Quick Sarkari

PREVIOUS YEAR PAPER WITH ANSWER KEY

DSSSB DASS Grade-II (ASO) CBT-1 2026

17 October 2026 · Shift 2 · 1:00 PM – 3:00 PM

डीएसएसएसबी दास ग्रेड-II (सहायक अनुभाग अधिकारी) सीबीटी-1 2026 – 17 अक्टूबर 2026, पाली 2, उत्तर कुंजी सहित

200	120 min	1 / −0.25	EN + HI
Questions / प्रश्न	Duration / समय	Marks per Q / अंक	Language / भाषा

INSIDE THIS PDF / इस PDF में

English Question Paper with Answer Key — Page 2–40
अंग्रेज़ी प्रश्न पत्र (उत्तर सहित)

Hindi Question Paper with Answer Key — Page 41–79
हिंदी प्रश्न पत्र (उत्तर सहित)

HOW TO USE THIS PAPER / इस पेपर का उपयोग कैसे करें

1. Attempt the paper first as a timed online mock test (link below).
   पहले नीचे दिए लिंक से इसे टाइमर के साथ ऑनलाइन मॉक टेस्ट के रूप में हल करें।
2. Check your score, section-wise analysis and solutions online.
   ऑनलाइन अपना स्कोर, खंड-वार विश्लेषण और हल देखें।
3. Use this PDF for revision. Correct answers are marked with a green tick.
   दोहराने के लिए इस PDF का उपयोग करें। सही उत्तर हरे टिक से चिह्नित हैं।

Attempt this paper as a FREE online mock test
इस पेपर को फ्री ऑनलाइन मॉक टेस्ट के रूप में हल करें – टाइमर, स्कोर और हल के साथ
https://quicksarkari.com/dsssb-dass-grade-2-aso-cbt-1-paper-17-october-2026-shift-2/

All DSSSB ASO previous year papers and mock tests: **quicksarkari.com/dsssb-dass-grade-2-aso-mock-test/**

Join WhatsApp Channel | Join Telegram Channel

GOVT. OF NCT OF DELHI

Delhi Subordinate Services Selection Board

FC-18, Institutional Area, Karkardooma, Delhi – 110092.

www.dsssb.delhigovt.nic.in

Test Date	17/10/2026
Test Time	1:00 PM - 3:00 PM
Subject	Assistant Section Officer

Section : **General Awareness**

Q.1 **What distinguishes Lin King's role in the achievement of the book 'Taiwan Travelogue' at the International Booker Prize 2026?**

Ans
- ✔ 1. Lin King made the book eligible through her translation.
- ✘ 2. Lin King served as co-author, shaping the narrative.
- ✘ 3. Lin King published the book in Taiwan.
- ✘ 4. Lin King was a judge for the prize in 2026.

Q.2 **Navreh, the traditional New Year festival, is celebrated by which community?**

Ans
- ✘ 1. Maithil Brahmins
- ✘ 2. Konkani Hindus
- ✘ 3. Sindhi Hindus
- ✔ 4. Kashmiri Pandits

Q.3 **'Vayushakti-26' was conducted at which firing range?**

Ans
- ✘ 1. Chushul Range
- ✔ 2. Pokhran Field Firing Range
- ✘ 3. Mahajan Field Firing Range
- ✘ 4. Babina Field Firing Range

Q.4 **Which Indian fashion designer's collection, Devi: The Eternal Muse, was showcased at Paris Haute Couture Week 2026?**

Ans
- ✘ 1. Tarun Tahiliani
- ✔ 2. Rahul Mishra
- ✘ 3. Sabyasachi Mukherjee
- ✘ 4. Manish Malhotra

Q.5 **According to the work–energy theorem, the net work done on an object is equal to the change in its:**

Ans
- ✘ 1. Chemical energy
- ✘ 2. Nuclear energy
- ✔ 3. Kinetic energy
- ✘ 4. Potential energy

Q.6 **In June 2026, which Indian private sector bank announced the acquisition of Deutsche Bank retail banking, affluent private banking, and wealth management business in India?**

Ans
- ✘ 1. Axis Bank
- ✘ 2. ICICI Bank
- ✘ 3. IndusInd Bank
- ✔ 4. Kotak Mahindra Bank

Quick Sarkari

QuickSarkari.com | WhatsApp Channel | Telegram: t.me/quick_sarkari

Q.7 **The SI base unit of thermodynamic temperature, the kelvin, is defined using which physical constant?**

Ans
- ✗ 1. Avogadro constant
- ✓ 2. Boltzmann constant
- ✗ 3. Planck constant
- ✗ 4. Speed of light

Q.8 **Which classical dance form of India is known for its elaborate abhinaya (expressive storytelling) and is traditionally performed by male artists wearing huge kireetams (ornamental headgear), elaborate makeup, and costumes?**

Ans
- ✓ 1. Kathakali
- ✗ 2. Bharatanatyam
- ✗ 3. Kuchipudi
- ✗ 4. Manipuri

Q.9 **In May 2026, which countries confirmed an Ebola outbreak involving the Bundibugyo species?**

Ans
- ✗ 1. Ghana and Ethiopia
- ✗ 2. Sudan and Tanzania
- ✓ 3. D. R. Congo and Uganda
- ✗ 4. Nigeria and Kenya

Q.10 **Kathputli is a traditional puppet performance in which wooden puppets are operated using strings and are used to narrate historical tales, folklore, and social themes. This form of puppetry is traditionally associated with which Indian state?**

Ans
- ✗ 1. Karnataka
- ✓ 2. Rajasthan
- ✗ 3. West Bengal
- ✗ 4. Kerala

Q.11 **During the planning era (1947–1991), which sector received the highest priority under India's Five-Year Plans to promote industrialisation?**

Ans
- ✗ 1. The agricultural sector
- ✓ 2. The industrial sector
- ✗ 3. The banking sector
- ✗ 4. The service sector

Q.12 **Which significant planning innovation was introduced under the Tenth Five-Year Plan (2002–2007)?**

Ans
- ✓ 1. Establishing monitorable targets for development indicators
- ✗ 2. Replacing Five-Year Plans with annual development programmes
- ✗ 3. Adopting centralized controls over industrial production
- ✗ 4. Introducing rolling plans for annual resource allocation

Q.13 **Which phase transition involves matter changing directly from a solid state to a gaseous state without passing through the liquid phase?**

Ans
- ✗ 1. Condensation
- ✗ 2. Fusion
- ✗ 3. Evaporation
- ✓ 4. Sublimation

QuickSarkari.com | WhatsApp Channel | Telegram: t.me/quick_sarkari

Q.14 **The book "Son of Nobody" was published on 31 March 2026. Who among the following wrote this book?**

Ans
✔ 1. Yann Martel
✘ 2. Margaret Atwood
✘ 3. Madeline Miller
✘ 4. Colm Tóibín

Q.15 **In March 2026, the Defence Acquisition Council (DAC) granted Acceptance of Necessity (AoN) for proposals worth about ₹2.38 lakh crore. Which of the following was approved for the Indian Army?**

Ans
✘ 1. Nuclear-powered aircraft carrier
✘ 2. Long-range passenger aircraft
✘ 3. Commercial satellite launch vehicle
✔ 4. Air Defence Tracked System

Q.16 **Which law explains that water always contains hydrogen and oxygen in a fixed ratio by mass?**

Ans
✔ 1. Law of Definite Proportions
✘ 2. Atomic Number Law
✘ 3. Law of Multiple Proportions
✘ 4. Law of Conservation of Mass

Q.17 **Who is the author of 'The Sage who Reimagined Hinduism: The Life, Lessons and Legacy of Sree Narayana Guru'?**

Ans
✘ 1. Arundhati Roy
✔ 2. Shashi Tharoor
✘ 3. Chetan Bhagat
✘ 4. Amish Tripathi

Q.18 **In August 2026, when the Ministry of Electronics and Information Technology (MeitY) notified the Mobile Phone Manufacturing Scheme (MPMS), which of the following was a specified eligibility criterion for an Indian brand under Target Segment 2 (TS2)?**

Ans
✔ 1. More than 51% shareholding held by Indian citizens
✘ 2. More than 51% shareholding held by foreign parent companies
✘ 3. More than 51% shareholding held by overseas investors
✘ 4. More than 51% shareholding held by institutional investors

Q.19 **The Sela Tunnel, one of India's important strategic tunnels, is located in which state?**

Ans
✔ 1. Arunachal Pradesh
✘ 2. Uttarakhand
✘ 3. Himachal Pradesh
✘ 4. Sikkim

Q.20 **Which statutory body approved a phased transition to cleaner Light Goods Vehicles (LGVs) in the Delhi-National Capital Region (Delhi-NCR) in August 2026?**

Ans
✔ 1. Commission for Air Quality Management
✘ 2. National Green Tribunal
✘ 3. Central Pollution Control Board
✘ 4. Ministry of Road Transport and Highways

Section : **General Awareness 2**

QuickSarkari.com | WhatsApp Channel | Telegram: t.me/quick_sarkari

Q.1 **Which of the following Constitutional authorities has an oath or affirmation prescribed in the Third Schedule of the Indian Constitution?**

Ans
- ✔ 1. Comptroller and Auditor-General of India
- ✗ 2. Governor of States
- ✗ 3. President of India
- ✗ 4. Vice-President of India

Q.2 **Which of the following states has a higher than national average share of Net Sown Area (NSA)?**

Ans
- ✗ 1. Mizoram
- ✗ 2. Nagaland
- ✔ 3. Punjab
- ✗ 4. Sikkim

Q.3 **The death of which Mughal Emperor in 1707 is generally regarded by historians as the watershed moment marking the rapid decline and political fragmentation of the Mughal Empire in the 18th century?**

Ans
- ✗ 1. Akbar
- ✔ 2. Aurangzeb
- ✗ 3. Shah Jahan
- ✗ 4. Jahangir

Q.4 **Enacted in the aftermath of the Revolt of 1857, the Act for the Better Government of India (August 1858) abolished the Board of Control and the Court of Directors, vesting supreme administrative authority over India in which newly created British Cabinet office?**

Ans
- ✗ 1. Secretary of State for War
- ✔ 2. Secretary of State for India
- ✗ 3. Secretary of State for the Colonies
- ✗ 4. Secretary of State for Foreign Affairs

Q.5 **What constitutional amendment substituted the phrase 'internal disturbance' with 'armed rebellion' as a ground for national emergency declaration in India?**

Ans
- ✔ 1. 44th Amendment Act
- ✗ 2. 42nd Amendment Act
- ✗ 3. 86th Amendment Act
- ✗ 4. 61st Amendment Act

Q.6 **Which physical features serve as the main water divide between the Arabian Sea and Bay of Bengal drainage systems in India?**

Ans
- ✗ 1. Western Ghats and Satpuras
- ✗ 2. Vindhyas and Satpuras
- ✗ 3. Himalayas and Aravalis
- ✔ 4. Delhi ridge, Aravalis, and Sahyadris

Q.7 **The Swadeshi and Boycott Movement of 1905 was formally launched at the Calcutta Town Hall primarily as a direct reaction to which colonial measure?**

Ans
- ✗ 1. Formation of the All-India Muslim League
- ✗ 2. Enactment of the Rowlatt Act
- ✗ 3. Jallianwala Bagh Massacre
- ✔ 4. Partition of Bengal by Lord Curzon

QuickSarkari.com | WhatsApp Channel | Telegram: t.me/quick_sarkari

Q.8 **Which company arrived in India in the early 17th century and, unlike the Portuguese, focused primarily on commercial dominance, particularly in the spice trade, establishing trading posts at Surat, Bharuch, Cochin, Nagapattinam and Masulipatnam?**

Ans
- ✗ 1. French East India Company
- ✗ 2. Danish East India Company
- ✓ 3. Dutch East India Company
- ✗ 4. British East India Company

Q.9 **In April 2026, Prime Minister Narendra Modi inaugurated which 594-km access-controlled greenfield expressway in Uttar Pradesh?**

Ans
- ✗ 1. Agra–Lucknow Expressway
- ✗ 2. Bundelkhand Expressway
- ✗ 3. Purvanchal Expressway
- ✓ 4. Ganga Expressway

Q.10 **Which physical feature is commonly found in the Great Indian Desert due to wind action and physical weathering?**

Ans
- ✓ 1. Mushroom rocks
- ✗ 2. Basalt columns
- ✗ 3. Karst formations
- ✗ 4. Shale cliffs

Q.11 **In macroeconomic sectoral accounting, how is the tertiary sector functionally demarcated from primary and secondary production?**

Ans
- ✗ 1. By operating completely outside formal monetary exchange systems through non-economic civic labor
- ✗ 2. By engaging exclusively in the direct physical transformation and chemical synthesis of organic matter
- ✗ 3. By relying solely upon the direct appropriation of biophysical yields from natural ecosystems
- ✓ 4. By generating immaterial utility and infrastructural support rather than tangible physical commodities

Q.12 **Under Article 262 of the Constitution of India, which body is empowered to provide by law for the adjudication of any dispute regarding the use, distribution, or control of waters of an inter-State river?**

Ans
- ✗ 1. Supreme Court of India
- ✗ 2. High Courts of the concerned states
- ✓ 3. Parliament of India
- ✗ 4. National Green Tribunal

Q.13 **The Bogibeel Bridge, inaugurated in 2018 in Assam, spans which river and connects which districts?**

Ans
- ✗ 1. Barak — Cachar and Hailakandi
- ✗ 2. Subansiri — Lakhimpur and Sonitpur
- ✗ 3. Manas — Barpeta and Bongaigaon
- ✓ 4. Brahmaputra — Dibrugarh and Dhemaji

Q.14 **During October, people in the northern plains often experience uncomfortable weather despite the beginning of the retreat of the southwest monsoon. Which combination best explains this condition?**

Ans
- ✗ 1. Reduced humidity and rapid nocturnal cooling
- ✓ 2. High temperature and moisture retained by the land
- ✗ 3. Falling temperatures and dry continental air
- ✗ 4. Increasing pressure and cold northerly winds

QuickSarkari.com | WhatsApp Channel | Telegram: t.me/quick_sarkari

Q.15 **Associated with the political thought of the Extremist nationalists and edited by Bipin Chandra Pal and Sri Aurobindo, in which year was the influential English daily *Bande Mataram* launched in Calcutta?**

Ans
- ✗ 1. 1907
- ✗ 2. 1905
- ✗ 3. 1908
- ✓ 4. 1906

Q.16 **Centered in the Damin-i-Koh region of the Rajmahal Hills during 1855–1856, which major tribal rebellion was led by the brothers Sidhu and Kanhu Murmu against British colonial authorities and moneylenders?**

Ans
- ✓ 1. Santhal Rebellion
- ✗ 2. Bhil Revolt
- ✗ 3. Paika Rebellion
- ✗ 4. Chuar Rebellion

Q.17 **Which Constitutional provision establishes the existence of a High Court for every State?**

Ans
- ✗ 1. Article 217
- ✓ 2. Article 214
- ✗ 3. Article 216
- ✗ 4. Article 212

Q.18 **Which Supreme Court judgment of 2013 directed the Election Commission to provide the NOTA option on Electronic Voting Machines?**

Ans
- ✓ 1. People's Union for Civil Liberties v. Union of India
- ✗ 2. Association for Democratic Reforms v. Union of India
- ✗ 3. Lily Thomas v. Union of India
- ✗ 4. Common Cause v. Union of India

Q.19 **Which feature makes India's Eastern Coastal Plain broader than the Western Coastal Plain?**

Ans
- ✓ 1. Presence of extensive river deltas
- ✗ 2. Presence of large desert regions
- ✗ 3. Formation of volcanic plateaus
- ✗ 4. Greater height of the Western Ghats

Q.20 **According to Article 164(1A) of the Constitution of India, inserted by the 91st Constitutional Amendment Act, 2003, what is the minimum permitted strength of the Council of Ministers (including the Chief Minister) in a State?**

Ans
- ✗ 1. Fifteen members
- ✗ 2. Five members
- ✗ 3. Ten members
- ✓ 4. Twelve members

Section : **General Intelligence and Reasoning Ability**

Quick Sarkari

Q.1 This question is based on the following words
RIL HMT BSE EAR

In each of the words, each vowel is changed to the letter immediately following it in the English alphabetical order and each consonant is changed to the letter immediately preceding it in the English alphabetical order. In how many letter-clusters thus formed, will no vowel appear?

Ans
1. Two
2. None
3. One
4. Three

Q.2 Six boxes X, Y, Z, W, V, and U are stacked one above the other, but not necessarily in the same order. Z is third from the bottom. Y is placed immediately below W. There are exactly two boxes between Y and U. X is placed immediately above Z. Which box is second from the top?

Ans
1. Y
2. V
3. U
4. W

Q.3 This question is based on the five, three-digit numbers given below.
(Left) 627 705 228 233 209 (Right)
(Example- 697 – First digit = 6, second digit = 9 and third digit = 7)
What will be the resultant if third digit of the second highest number is added to the third digit of second lowest number?

Ans
1. 14
2. 15
3. 17
4. 13

Q.4 Pointing to a photo, Mr. X said, "She is the wife of my son's brother's father."
How is the woman related to Mr. X?

Ans
1. Mother
2. Sister
3. Wife's mother
4. Wife

Q.5 In the following triads, each group of letters is related to the subsequent one following a certain logic. Select from the given options, the one which follows the same logic.
HEAL - LAHE - HAEL
LEAF - FALE - LAEF

Ans
1. SNOW - NOSW - NOWS
2. JOIN - NIJO - JION
3. LIME - EMLI - IMLE
4. RING - RNIG - GNIR

Q.6 In a certain code language,
"pilot monitors cockpit radar" is coded as "nI zG mN wQ"
"airport radar supports cockpit" is coded as "wQ zG yV wR"
"flies cockpit trained pilot" is coded as "cE mN zG kL"
(All the codes are two-letter codes only.)
How is 'radar' coded in the given language?

Ans
1. wQ
2. mN
3. kL
4. cE

Q.7 Refer to the following letter, number, symbol series and answer the question. Counting to be done from left to right. All numbers are single-digit numbers.
(Left) @ 3 7 * & S T D 4 E 6 2 R Y % K 5 + # G C (Right)
How many such letters are there which are immediately preceded by a symbol and also immediately followed by a number?

Ans
1. 2
2. 3
3. 1
4. 0

Q.8 **Each vowel in the word GARDENS is changed to the letter immediately following it in the English alphabetical order, and each consonant is changed to the letter immediately preceding it in the English alphabetical order. How many letters will appear exactly twice in the new group of letters thus formed?**

Ans
1. 0
2. 2
3. 3
4. 1

Q.9 In a certain code language,
A+ B means 'A is the sister of B'
A @ B means 'A is the brother of B'
A # B means 'A is the wife of B'
A ÷ B means ' A is the father of B'
Based on the above, how is X related to P if 'X@Y+L#O÷P '?

Ans
1. Mother's father
2. Brother
3. Father
4. Mother's brother

Q.10 A, B, C, D, E, F and G are sitting in a straight line facing North. Only two people sit between D and G. Only E sits to the right of C. Only one person sits between G and C. A sits at some place to the right of B but at some place to the left of F. How many people sit to the right of F?

Ans
1. Four
2. Three
3. Two
4. One

Q.11 S, T, O, R, E and D live on six different floors of the same building. The lowermost floor in the building is numbered 1, the floor above it is numbered 2 and so on, till the topmost floor, which is numbered 6.
S lives on an even-numbered floor but not on floor number 4. Only two people live between S and D. R lives on an odd-numbered floor but not on the lowermost floor. Only two people live between R and T. E lives immediately below R. How many people live between O and E?

Ans
1. Four
2. One
3. Three
4. Two

QuickSarkari.com | WhatsApp Channel | Telegram: t.me/quick_sarkari

Q.12 In a certain code language,
"survey data researcher collects" is coded as "tA tS cK pO"
"data project survey needs" is coded as "lG tS eH cK"
"careful survey researcher analyses" is coded as "cK hB tA yG"
(All the codes are two-letter codes only.)
How is 'data' coded in the given language?

Ans
1. tS
2. cK
3. lG
4. tA

Q.13 Amit starts from Point A and drives 65 km towards West. He then takes a right turn, drives 71 km, turns right and drives 81 km. He then takes a right turn and drives 89 km. He takes a final right turn, drives 16 km and stops at Point P. How far (shortest distance) and towards which direction should he drive in order to reach Point A again? (All turns are 90 degrees turns only unless specified)

Ans
1. 21 km to the South
2. 19 km to the North
3. 18 km to the North
4. 20 km to the North

Q.14 R, S, T, U, V and W live on six different floors of the same building. The lowermost floor in the building is numbered 1, the floor above it is numbered 2 and so on, till the topmost floor, which is numbered 6.
V lives on the topmost floor. Only three people live between V and S. T lives on a floor below S. W lives on an even-numbered floor. R lives on an odd-numbered floor but not on floor number 5.
How many people live between U and S?

Ans
1. Four
2. Three
3. Two
4. One

Q.15 Refer to the following letter, number, symbol series and answer the question. (All numbers are single–digit numbers only)
(Left) C 9 F 2 L 5 ^ Q $ 8 G N 4 P 3 * S @ 6 U 7 & X (Right)
If all the numbers are dropped, which of the following will be sixth from the right?

Ans
1. @
2. S
3. P
4. *

Q.16 Which of the following letter-clusters should replace # and % so that the pattern and relationship followed between the letter-cluster pair on the left side of :: is the same as that on the right side of :: ?
: RAJ :: NWF : %

Ans
1. # = KTC , % = UDM
2. # = KLC , % = UDM
3. # = KTC , % = UDI
4. # = MTC , % = UDM

QuickSarkari.com | WhatsApp Channel | Telegram: t.me/quick_sarkari

Q.17 Seven people F, G, H, I, V, W, and X are sitting in a straight line facing north. No one sits to the right of F. Only two people sit between F and V. Only three people sit between H and I. V sits to the immediate left of I. W sits to the immediate right of G. How many people sit between X and W?

Ans
1. Three ✗
2. One ✗
3. Zero ✗
4. Two ✓

Q.18 Each letter in the word VOLUME is changed to the letter immediately following it in the English alphabetical order, and then all the letters thus formed are arranged in the English alphabetical order. Which of the following letters will be fourth from the right in the new group of letters thus formed?

Ans
1. N ✓
2. V ✗
3. M ✗
4. P ✗

Q.19 Seven boxes, J, K, L, M, P, Q and R, are kept one over the other, but not necessarily in the same order.
Only J is kept above R. Only two boxes are kept between R and K. Only L is kept below M. Q is not kept immediately above K.
How many boxes are kept between P and L?

Ans
1. Four ✗
2. Two ✓
3. One ✗
4. Three ✗

Q.20 Refer to the following number, symbol series and answer the question (all numbers are single digit numbers only). Counting is to be done from left to right only.
(Left) 7 4 < 6 9 6 # @ 4 6 8 4 5 7 * 8 3 1 % 4 & 5 = 8 (Right)
How many such symbols are there, each of which is immediately preceded by an odd number and also immediately followed by an even number?

Ans
1. Two ✗
2. One ✗
3. Three ✓
4. None ✗

Section : **General Intelligence and Reasoning Ability 2**

QuickSarkari.com | WhatsApp Channel | Telegram: t.me/quick_sarkari

Q.1 **Select the Venn diagram that best illustrates the relationship between the following classes.**
Parrot, Bed, Card

Ans

✗ 1. 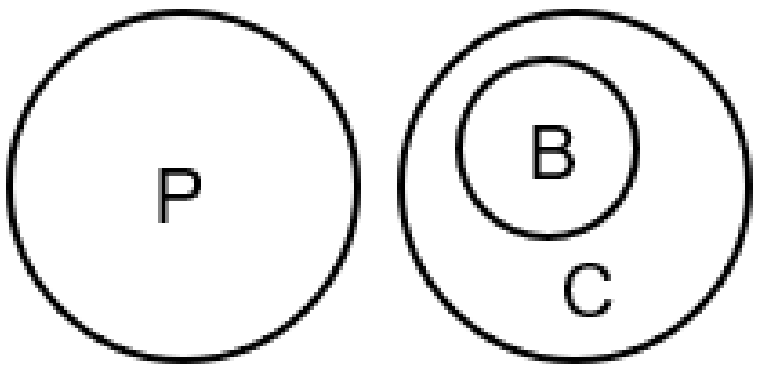

✗ 2. 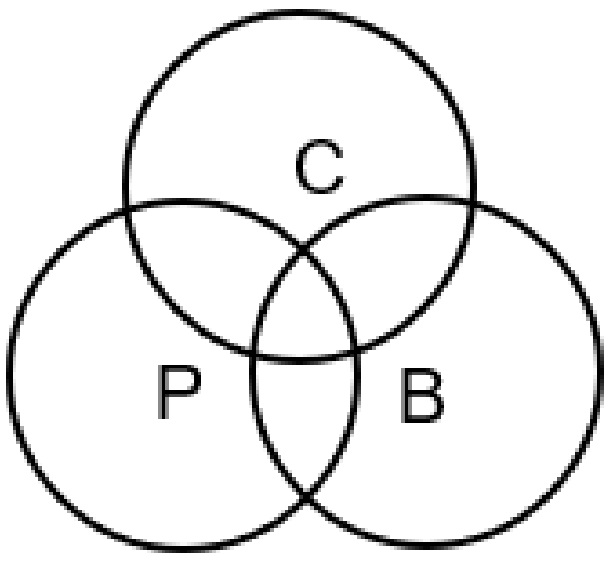

✓ 3. 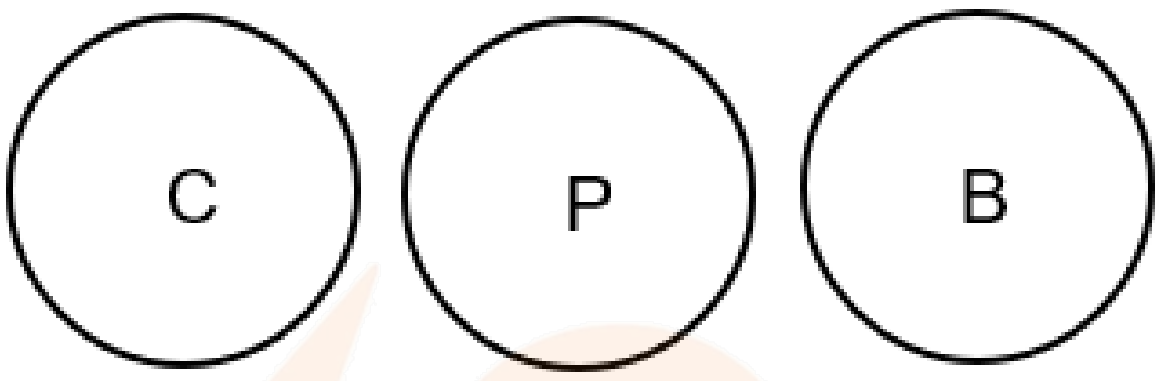

✗ 4. 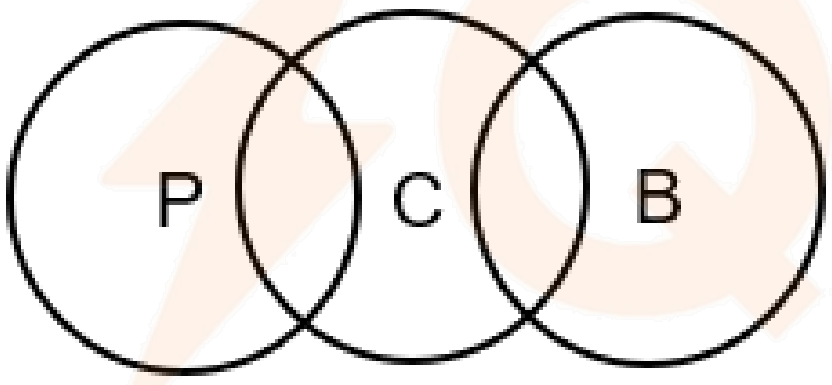

Q.2 **If 'A' stands for '÷' , 'B' stands for 'x', 'C' stands for '+' and 'D' stands for '-' , what will come in place of the question mark '?' in the following equation?**
163 C 61 B 6 D 264 A 4 =?

Ans

✗ 1. 464

✗ 2. 462

✓ 3. 463

✗ 4. 461

Quick Sarkari

QuickSarkari.com | WhatsApp Channel | Telegram: t.me/quick_sarkari

Q.3 **Choose the diagram that best represents the relationship among the following classes: Cameras, Printers, Devices**

Ans

[wrong] 1. 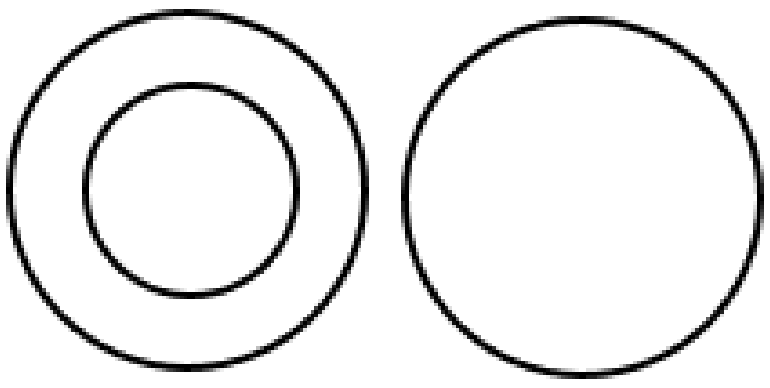

[wrong] 2. 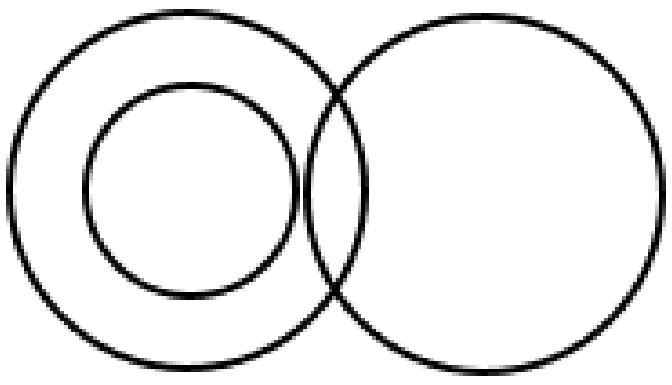

[wrong] 3. 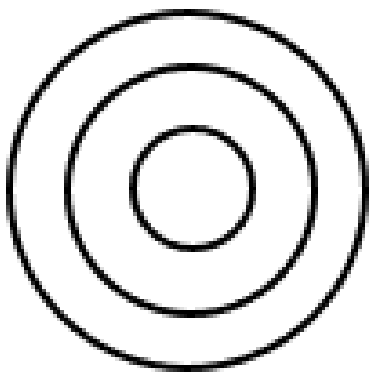

[correct] 4. 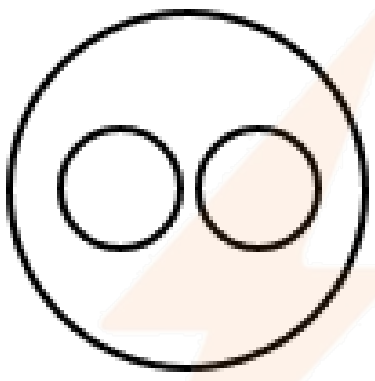

Q.4 **Select the correct mirror image of the given combination when the mirror is placed at "MN" as shown below.**

Ans

[wrong] 1.

[wrong] 2.

[wrong] 3.

[correct] 4.

Q.5 **If 1 is added to each even digit and 2 is subtracted from each odd digit in the number 3748295, what will be the sum of the digits which are third from the left and third from the right?**

Ans

[wrong] 1. 5

[wrong] 2. 7

[wrong] 3. 3

[correct] 4. 8

QuickSarkari.com | WhatsApp Channel | Telegram: t.me/quick_sarkari

Q.6 **Select the set in which the numbers are related in the same way as are the numbers of the following sets.**

(NOTE: Operations should be performed on the whole numbers, without breaking down the numbers into their constituent digits. E.g. 13 – Operations on 13 such as adding/subtracting/multiplying to 13 can be performed. Breaking down 13 into 1 and 3 and then performing mathematical operations on 1 and 3 is not allowed.)

(49, 140, 14)
(38, 148, 24)

Ans
✗ 1. (25, 112, 22)
✓ 2. (3, 36, 10)
✗ 3. (18, 107, 25)
✗ 4. (37, 142, 24)

Q.7 **What should come in place of '?' in the given series?**
56 51 46 41 36 ?

Ans
✗ 1. 32
✗ 2. 30
✓ 3. 31
✗ 4. 33

Q.8 **What should come in place of '?' in the given series?**
3, 11, 27, 51, 83, ?

Ans
✓ 1. 123
✗ 2. 125
✗ 3. 110
✗ 4. 128

Q.9 **3 is related to 30 following a certain logic. Following the same logic, 5 is related to 128. To which of the following is 7 related to, following the same logic?**

Ans
✗ 1. 352
✗ 2. 336
✗ 3. 341
✓ 4. 346

Quick Sarkari

Q.10 If the water source is placed along X-Y, as shown in the figure, which of the given options will be the water reflection of the given figure?

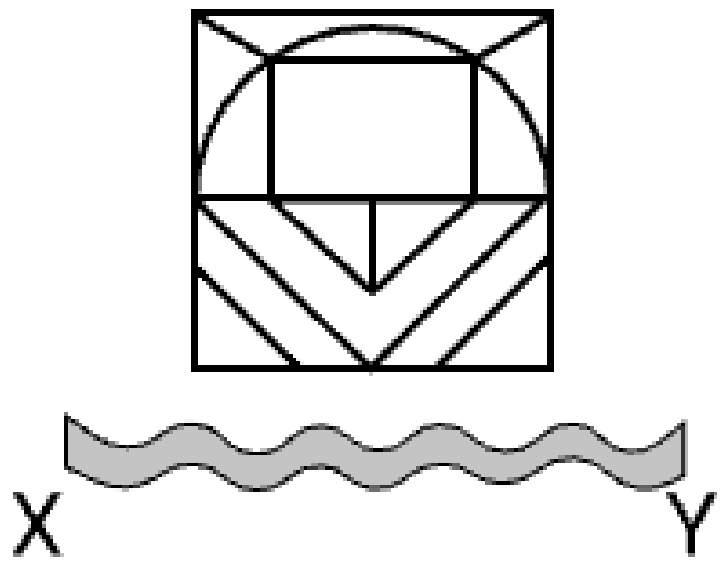

Ans

❌ 1. 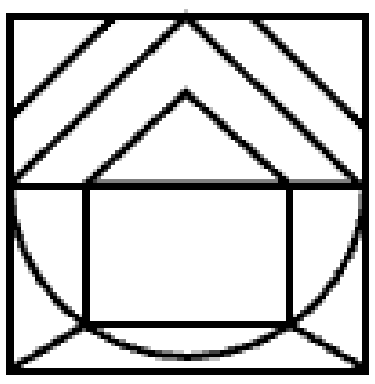

❌ 2. 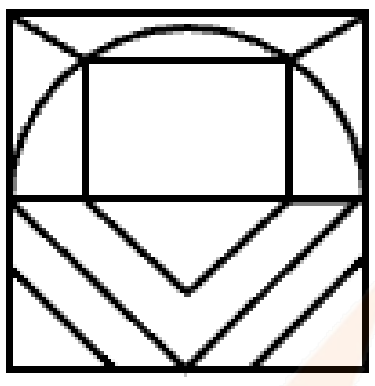

✔ 3. 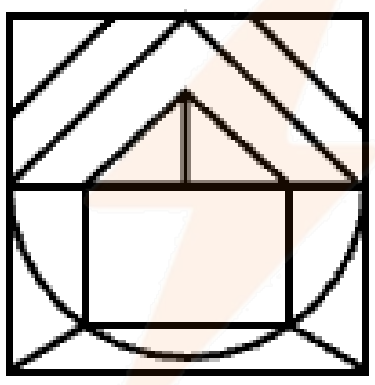

❌ 4. 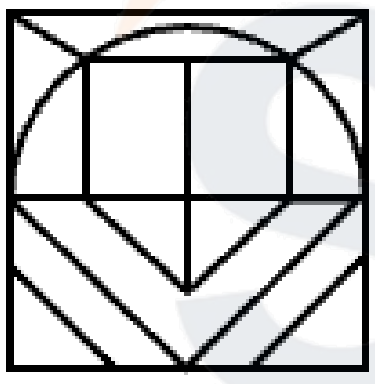

Q.11 Select the set in which the numbers are related in the same way as are the numbers of the following sets.
(NOTE : Operations should be performed on the whole numbers, without breaking down the numbers into its constituent digits. E.g. 13 – Operations on 13 such as adding / subtracting /multiplying etc. to 13 can be performed. Breaking down 13 into 1 and 3 and then performing mathematical operations on 1 and 3 is not allowed)
(11,12,264)
(14,12,336)

Ans

❌ 1. (17,8,282)

✔ 2. (13,14,364)

❌ 3. (15,10,350)

❌ 4. (16,11,302)

Q.12 If 1 is added to each digit in 5123847, and the digits are then rearranged in ascending order, what is the sum of the first digit from the left and the first digit from the right in the new number?

Ans

❌ 1. 9

❌ 2. 10

❌ 3. 12

✔ 4. 11

Q.13 In this question, a question is followed by two statements numbered (I) and (II). You have to decide whether the data provided in the statements are sufficient to answer the question. Read both the statements and decide the appropriate answer.

Among five trees—A, F, K, P, and X—each has a different height, which tree is the tallest?

Statement I: K is taller than only one tree. P is shorter than F but taller than A.
Statement II: P is taller than X.

Ans
✗ 1. Both statements I and II together are NOT sufficient to answer the question
✗ 2. Data in Statement II alone is sufficient to answer the question while data in statement I is not
✓ 3. Both statements I and II together (and not statement 1 alone or statement II alone) are sufficient to answer the question.
✗ 4. Data in Statement I alone is sufficient to answer the question while data in statement II is not

Q.14 Based on the alphabetical order, three of the following four are alike in a certain way and thus form a group. Which is the one that does not belong to that group?
(Note: The odd one out is not based on the number of consonants/vowels or their position in the letter cluster)

Ans
✗ 1. FLJ
✗ 2. MSQ
✗ 3. KQO
✓ 4. CIH

Q.15 What should come in place of '?' in the given series?
231 171 257 152 283 133 ?

Ans
✓ 1. 309
✗ 2. 301
✗ 3. 291
✗ 4. 283

Q.16 In this question, three statements are given, followed by two conclusions numbered I and II. Assuming the statements to be true, even if they seem to be at variance with commonly known facts, decide which of the conclusion(s) logically follows/follow from the statements.
Statements: All plates are bats. Some drillers are cameras. All cameras are bats.
Conclusions (I) : All drillers are bats
Conclusions (II) : Some plates are cameras

Ans
✗ 1. Only conclusion I follows.
✗ 2. Only conclusion II follows.
✗ 3. Both conclusions I and II follow.
✓ 4. Neither conclusions I nor II follows

Q.17 Which of the following letter-number clusters will replace the question mark (?) in the given series to make it logically complete?
LRY53 , GMT70 , BHO87 , WCJ104 , ?

Ans
✗ 1. SXE121
✗ 2. RYE121
✓ 3. RXE121
✗ 4. RXF121

Q.18 Based on the English alphabetical order, three of the following four letter-clusters are alike in a certain way and thus form a group. Which letter-cluster DOES NOT belong to that group?
(Note: The odd one out is not based on the number of consonants/vowels or their position in the letter-cluster.)

Ans
✗ 1. UZD
✗ 2. KPT
✗ 3. HMQ
✓ 4. JOT

QuickSarkari.com | WhatsApp Channel | Telegram: t.me/quick_sarkari

Q.19 **A question is followed by two statements numbered (I) and (II). You have to decide whether the data provided in the statements are sufficient to answer the question. Read both the statements and decide the appropriate answer.**
Question:
Among 5 poles, T, R, Q, W and V, each having a different height, which pole is the tallest?
Statements:
(I) W is taller than R. R is taller than V.
(II) V is shorter than T but taller than Q.

Ans

✗ 1. Both statements I and II together (and not statement 1 alone or statement II alone) are sufficient to answer the question

✓ 2. Both statements I and II together are NOT sufficient to answer the question

✗ 3. Data in Statement II alone is sufficient to answer the question while data in statement I is not

✗ 4. Data in Statement I alone is sufficient to answer the question while data in statement II is not

Q.20 **Select the correct mirror image of the given figure when the mirror is placed at AB as shown below.**

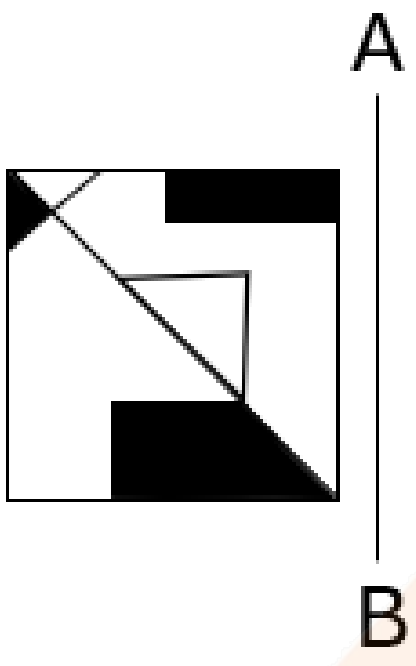

Ans

✓ 1.

✗ 2.

✗ 3. 

✗ 4. 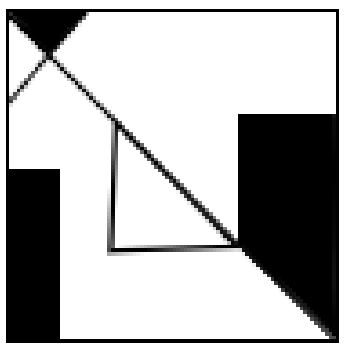

Section : **Arithmetical and Numerical Ability**

Q.1 **In an election between candidates X and Y, 10% of registered voters did not vote. Of the voters who participated, 4% votes were invalid. If candidate Y received 60% of the valid votes, which amounted to 10,368 valid votes, what was the total number of registered voters?**

Ans

✗ 1. 21,000

✓ 2. 20,000

✗ 3. 19,000

✗ 4. 18,000

QuickSarkari.com | WhatsApp Channel | Telegram: t.me/quick_sarkari

Q.2 Simplify: 8 × [2 + (6 ÷ 3)]

Ans
- ✔ 1. 32
- ✗ 2. 16
- ✗ 3. 18
- ✗ 4. 24

Q.3 Buses depart from a station every 14 minutes, 21 minutes, and 35 minutes. If all depart together at 6:05 a.m., when is their next simultaneous departure?

Ans
- ✗ 1. 10:05 a.m.
- ✗ 2. 8:35 a.m.
- ✗ 3. 9:05 a.m.
- ✔ 4. 9:35 a.m.

Q.4 Three numbers are in the ratio 17 : 7 : 9. If their least common multiple (LCM) is 7497, what is their highest common factor (HCF)?

Ans
- ✗ 1. 9
- ✗ 2. 17
- ✗ 3. 21
- ✔ 4. 7

Q.5 A student scored 90, 85, 80, and 95 in four subjects. What minimum score is required in the fifth subject to achieve an average of at least 88?

Ans
- ✗ 1. 88
- ✗ 2. 92
- ✔ 3. 90
- ✗ 4. 85

Q.6 If the planetary council mandates that any mine operating below 65% efficiency must pay a fine of 5 Credits per Ton of Ore Extracted, what is the total fine collected from the non-compliant planets?

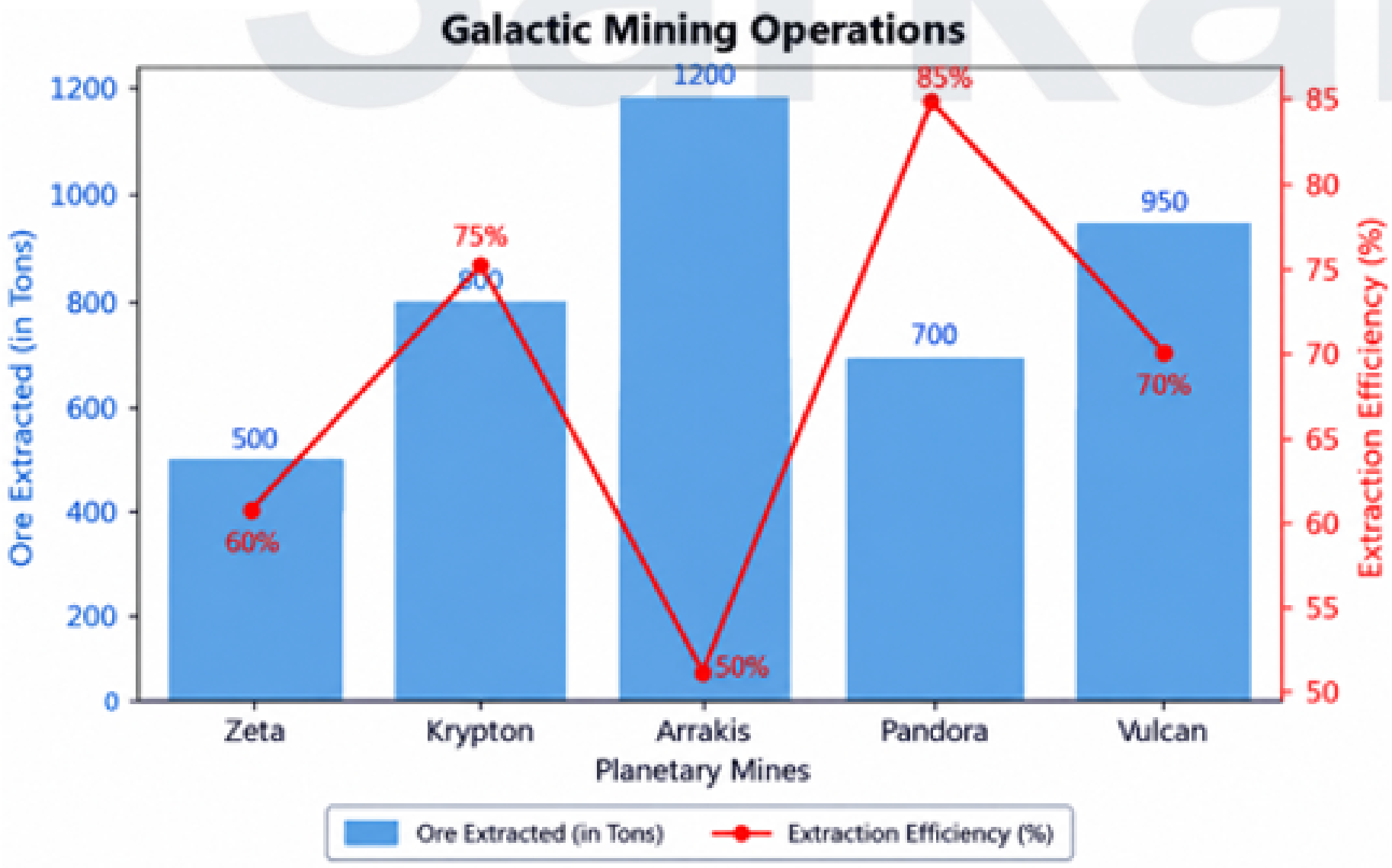

Ans
- ✗ 1. 8,250 Credits
- ✗ 2. 8,750 Credits
- ✗ 3. 8,000 Credits
- ✔ 4. 8,500 Credits

QuickSarkari.com | WhatsApp Channel | Telegram: t.me/quick_sarkari

Q.7 **A robotics lab schedules maintenance checks for three types of machines: one every 14 days, one every 21 days, and one every 35 days. If all machines are checked today, then after how many days will they first be checked together again?**

Ans
- ✗ 1. 98
- ✗ 2. 105
- ✗ 3. 490
- ✓ 4. 210

Q.8 **The average height of a group of 14 students is 194 cm. Two more students of height 191 cm and 190 cm joined the group and 5 students of average height 115 cm leave the group. What is the new average height (in cm, rounded off to 1 decimal place) of the group after the changes?**

Ans
- ✗ 1. 234.3
- ✗ 2. 230.6
- ✗ 3. 221.3
- ✓ 4. 229.3

Q.9 **A sum, when invested at 20% simple interest per annum, amounts to ₹6720 after 4 years. What is the simple interest (in ₹, rounded off to two decimal places) on the same sum at the same rate in 1 year?**

Ans
- ✗ 1. 373.335
- ✗ 2. 1493.34
- ✗ 3. 2986.68
- ✓ 4. 746.67

Q.10 **The total quantity of rare metals extracted from Sector 7G is 13,500 tons. The combined quantity of Mithril and Adamantium is equal to what percentage of the combined quantity of Vibranium and Cosmium? (Round the answer to two decimal places.)**

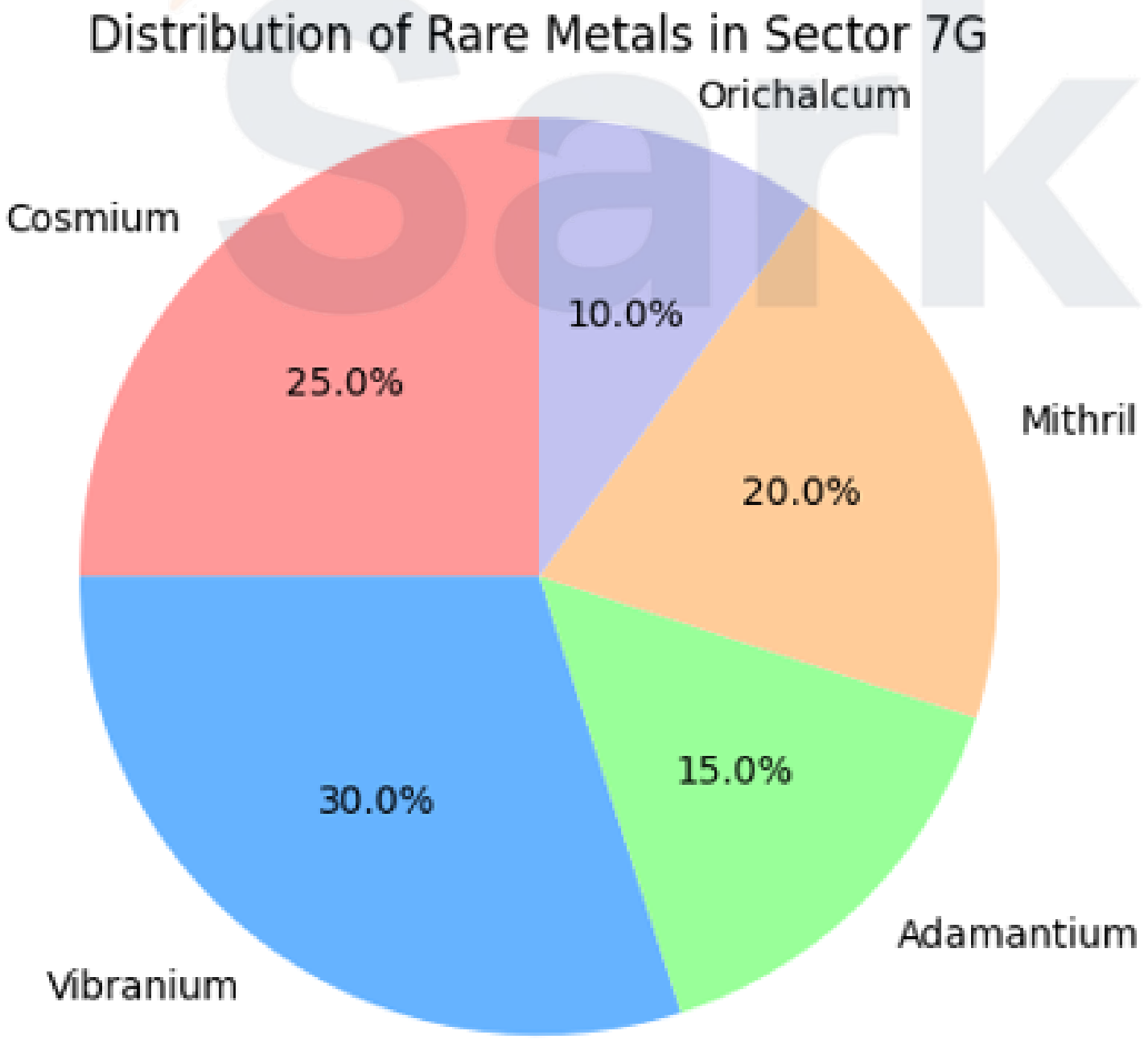

Ans
- ✗ 1. 66.67%
- ✓ 2. 63.64%
- ✗ 3. 77.78%
- ✗ 4. 71.12%

QuickSarkari.com | WhatsApp Channel | Telegram: t.me/quick_sarkari

Q.11 Which of the following numbers is divisible by 6?

Ans
✔ 1. 84
✘ 2. 93
✘ 3. 57
✘ 4. 75

Q.12 A borrower borrows ₹36,000 at 25% simple interest per annum for 3 years. The total accumulated amount (Principal + 3 years' interest) is to be cleared at the end of the 3rd year. The loan is paid off in 3 equal annual installments paid at the end of Year 1, Year 2, and Year 3. Assuming that every installment paid carries simple interest at 25% per annum from its payment date up to the end of the 3rd year, calculate the value of each installment.

Ans
✘ 1. ₹ 16,450
✘ 2. ₹ 19,450
✔ 3. ₹ 16,800
✘ 4. ₹ 20,450

Q.13 Convert the mixed recurring decimal $17.40\overline{73}$ into a vulgar fraction.

Ans
✘ 1. $\frac{172443}{9900}$
✘ 2. $\frac{172343}{9900}$
✔ 3. $\frac{172333}{9900}$
✘ 4. $\frac{172433}{9900}$

Q.14 A sum of ₹25,000 is to be repaid in five equal annual instalments, with the first instalment payable at the end of the first year. The loan carries compound interest at 12% per annum, compounded annually. What is the amount of each instalment? (Round off the answer to the nearest rupee.)

Ans
✘ 1. ₹7,356
✔ 2. ₹6,935
✘ 3. ₹6,859
✘ 4. ₹6,548

QuickSarkari.com | WhatsApp Channel | Telegram: t.me/quick_sarkari

Q.15 The bar graph given below shows the electricity consumption (in kWh) of six households during the month of July.

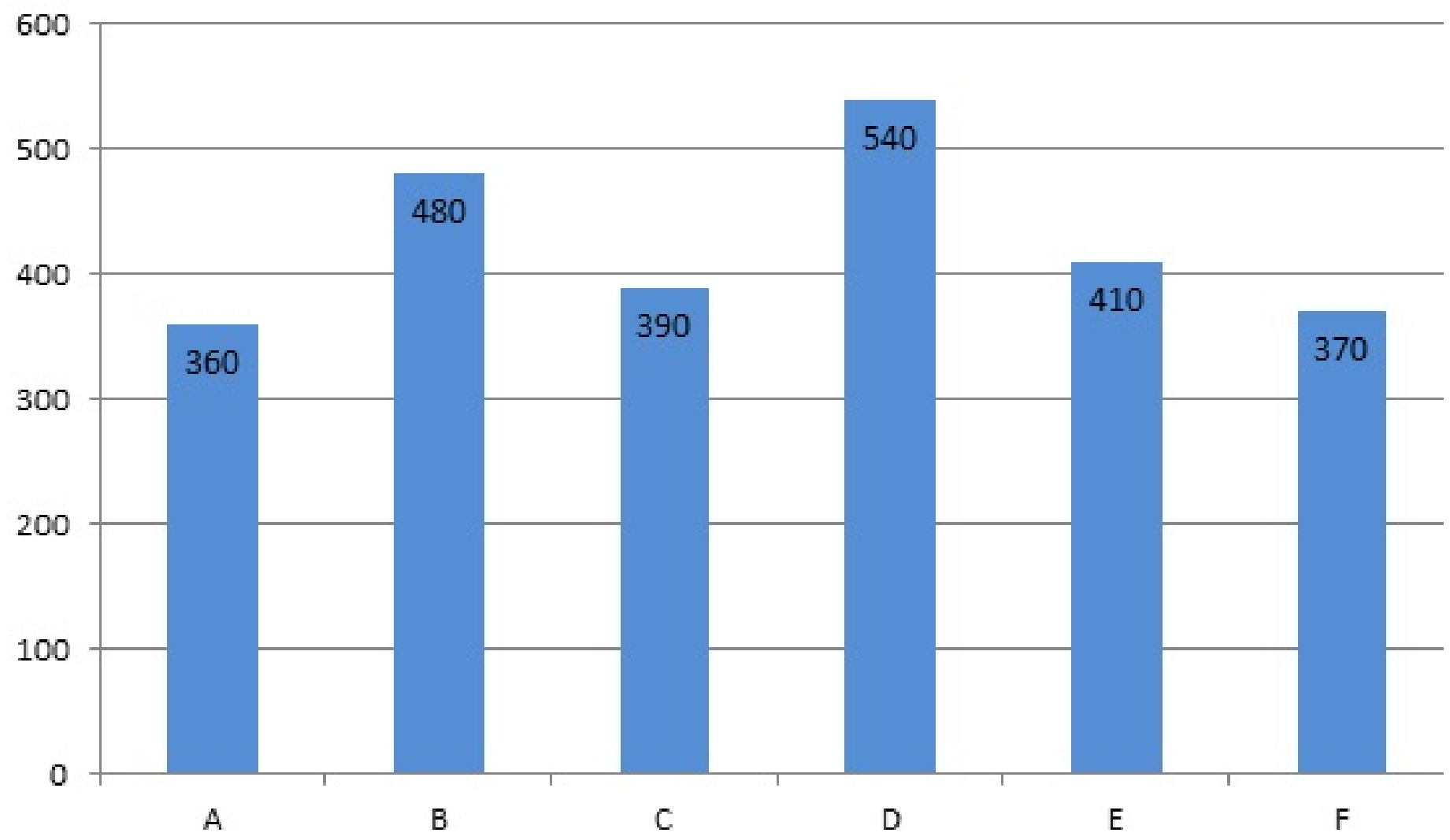

By what percentage is Household C's consumption less than Household D's consumption (rounded off to two decimal places)?

Ans
1. 23.18%
2. 22.58%
3. 27.78%
4. 25.34%

Q.16 The table given below shows the details of the number of students appearing and passing in different classes.

Class	Appeared	Passed
VII	260	250
VIII	340	320
IX	400	380
X	380	350
XI	350	320

If the pass percentage in class XI needs to be at least 96%, then how many more students should have passed?

Ans
1. 15
2. 13
3. 16
4. 20

Q.17 What will be the amount after 1 year if ₹6900 is invested at 20% compound interest per annum, compounded half-yearly?

Ans
1. ₹8349
2. ₹8249
3. ₹8449
4. ₹8149

Q.18 In an election, 12,500 votes were cast and 4% were invalid. Of the valid votes, Candidate P received 60%. What was the margin by which Candidate P won, if the rest went to Candidate Q?

Ans
1. 2,400
2. 3,200
3. 1,800
4. 3,000

Q.19 **A person invests a sum at 16% per annum compounded half-yearly for 18 months and earns a compound interest of ₹25,971.20. Find the sum invested.**

Ans
1. ₹1,15,000 ✗
2. ₹1,00,000 ✓
3. ₹1,23,000 ✗
4. ₹85,000 ✗

Q.20 **Find the value of 'n' if $25^{(n-1)} + 100 = 5^{(2n-1)}$.**

Ans
1. 3 ✗
2. 4 ✗
3. 1 ✗
4. 2 ✓

Section : **Arithmetical and Numerical Ability 2**

Q.1 **A warehouse analytics dashboard displays the following productivity data. Productivity is defined as the number of orders processed per packing station. The dashboard notes that productivity per station remained unchanged throughout the day. Determine the missing dashboard entry.**

Shift	Packing Stations	Orders Processed
Morning	48	7200
Evening	62	?

Ans
1. 9,400 ✗
2. 9,300 ✓
3. 9,200 ✗
4. 9,500 ✗

Q.2 **Kalpana and Sudha got 486 and 504 marks, respectively, in an examination. If Kalpana scored 54% marks, then what is the percentage of marks scored by Sudha?**

Ans
1. 59% ✗
2. 53% ✗
3. 56% ✓
4. 57% ✗

Q.3 **A contractor finds that the time taken to finish a project is inversely proportional to the number of workers employed. If 6 workers can complete the job in 10 days, then how many days will 15 workers take to finish the same job?**

Ans
1. 5 days ✗
2. 2 days ✗
3. 4 days ✓
4. 6 days ✗

Q.4 **The price of an item is increased by 30% and then decreased by 30%. What is the net percentage change in the price?**

Ans
1. 9% decrease ✓
2. 11% increase ✗
3. 10% decrease ✗
4. No change ✗

QuickSarkari.com | WhatsApp Channel | Telegram: t.me/quick_sarkari

Q.5 **A bookstore applies two successive discounts of 12% and 20% to a book. What is the equivalent single percentage discount?**

Ans
- ✗ 1. 30%
- ✗ 2. 28.4%
- ✓ 3. 29.6%
- ✗ 4. 32%

Q.6 **An article is sold at 25% profit. If the selling price is reduced by 12%, what is the new profit percentage?**

Ans
- ✗ 1. 13%
- ✗ 2. 15%
- ✗ 3. 9%
- ✓ 4. 10%

Q.7 **A manufacturer sells a device to a wholesaler at a profit of 8%. The wholesaler sells it to a retailer at a profit of 22%. The retailer then sells it to a customer for ₹11,468 and gains a profit of 18%. What was the device's original manufacturing cost (rounded off to the nearest rupee)?**

Ans
- ✗ 1. ₹7,134
- ✓ 2. ₹7,376
- ✗ 3. ₹7,924
- ✗ 4. ₹7,546

Q.8 **A factory produces ice creams shaped as right circular cones with a base radius of 5 cm and height of 12 cm. A smaller cone of base radius 2 cm and height 12 cm is removed from the center. What is the remaining volume of ice cream (in cm^3), after the conical hole is drilled out? (Use π = 22/7)**

Ans
- ✓ 1. 264
- ✗ 2. 242
- ✗ 3. 286
- ✗ 4. 220

Q.9 **A solid hemisphere of radius 5 cm is mounted on a solid cylinder of the same base radius and height 7 cm. What is the total surface area of the combined solid?**

Ans
- ✓ 1. $145\pi\ cm^2$
- ✗ 2. $170\pi\ cm^2$
- ✗ 3. $130\pi\ cm^2$
- ✗ 4. $270\pi\ cm^2$

Q.10 **During an international conference, three researchers—Harini, Sota, and Miguel—are tasked with assembling data packets for a workshop. Working together, but in a rotating schedule where only two work each day, Harini and Sota complete the task in 4 days, Sota and Miguel in 6 days, and Harini and Miguel in 12 days. Assuming constant individual rates, how many days would it take all three researchers working together simultaneously to complete the task?**

Ans
- ✗ 1. 6 days
- ✗ 2. 5 days
- ✓ 3. 4 days
- ✗ 4. 7 days

QuickSarkari.com | WhatsApp Channel | Telegram: t.me/quick_sarkari

Q.11 Two trains are moving in opposite directions and cross each other in 18 seconds. The ratio of their speeds is 7 : 5, and ratio of their lengths is 4 : 3. If the shorter train is 180 meters long, then what is the speed (in km/h) of the slower train?

Ans
1. 45
2. 27
3. 36
4. 35 ✔

Q.12 The cost price of 28 articles is the same as the selling price of x articles. If the profit is 40%, find the value of x.

Ans
1. 24
2. 20 ✔
3. 25
4. 16

Q.13 A watch has a marked price of ₹7,200 and is sold for ₹5,510 after two successive discounts, first a cash discount and second a scheme discount. If the cash discount is 10%, then what is the rate of the scheme discount? (Rounded off to the nearest integer)

Ans
1. 20%
2. 15% ✔
3. 12%
4. 18%

Q.14 A kite has diagonals of 18 cm and x cm. If its area is 126 sq cm, find the value of x.

Ans
1. 14 ✔
2. 9
3. 7
4. 21

Q.15 Two towns are 180 km apart. If a bus travels between them at a constant speed of 45 km/h, then what is the minimum time it would take to cover the distance?

Ans
1. 6 hours
2. 4 hours ✔
3. 5 hours
4. 3 hours

Q.16 Find the mean proportional of 20 and 5.

Ans
1. 8
2. 15
3. 10 ✔
4. 6

Q.17 A computer is marked at ₹24,000. A customer gets two successive discounts of 10% and 5%. What is the net discount amount (in ₹) received by the customer?

Ans
1. 3,400
2. 3,640
3. 3,520
4. 3,480 ✔

Quick Sarkari

Q.18 A train covers 20% of its journey at 50 km/h, 30% at 60 km/h, and the remaining 50% at 100 km/h. If the total journey is 1,000 km, what is the average speed of the train for the entire journey? (Round off the answer to two decimal places.)

Ans
✔ 1. 71.43 km/h
✘ 2. 65.05 km/h
✘ 3. 80.52 km/h
✘ 4. 63.33 km/h

Q.19 Two pipes, A and B, can fill a cistern in 12 hours and 18 hours, respectively. If both are opened together, but B is closed after 6 hours, then how much total time will it take to fill the cistern completely?

Ans
✔ 1. 8 hours
✘ 2. 12 hours
✘ 3. 7 hours
✘ 4. 10 hours

Q.20 If (x + 8):(y – 4) = 5:7 and (x – 4):(y + 6) = 3:5, what is the value of x:y?

Ans
✘ 1. 19:22
✘ 2. 7:10
✘ 3. 13:18
✔ 4. 11:17

Section : **Hindi Language and Comprehension**

Q.1 लोकोक्ति का सही अर्थ क्या होगा?
आँख से देखकर मक्खी नहीं निगली जाती

Ans
✔ 1. हानिकारक काम जान-बूझकर नहीं किया जाता
✘ 2. जानलेवा संकट से खुद को बचाना
✘ 3. खान-पान में स्वच्छता रखना
✘ 4. जानबूझकर अपनी गलती से मुकर जाना

Q.2 निम्नलिखित वाक्य के रिक्त स्थान को भरने के लिए उपयुक्त परसर्ग का चयन करें:
धर्म के नाम पर होने वाले संघर्षों की नींव भारत में अंग्रेजों -------------------डाली थी।

Ans
✘ 1. के द्वारा
✘ 2. से
✘ 3. पर
✔ 4. ने

Q.3 'मुँह में दाँत न होना' मुहावरे का सही अर्थ है –

Ans
✘ 1. मुसीबत में छोड़ना
✘ 2. व्यक्त न करना
✔ 3. सामर्थ्य न होना
✘ 4. लज्जित होना

Q.4 निम्नलिखित लोकोक्ति के सही अर्थ को चुनें-
देह डोरा पेट बोरा

Ans
✘ 1. पतला व्यक्ति कम खाता है
✘ 2. हमेशा जागरूक रहना
✔ 3. दुबले व्यक्ति द्वारा अधिक खाया जाना
✘ 4. पतला शरीर स्वास्थ्यवर्धक होता है

QuickSarkari.com | WhatsApp Channel | Telegram: t.me/quick_sarkari

Q.5 "इसे कहो या कुएँ में डालो" लोकोक्ति का सही अर्थ क्या है?

Ans
- ✗ 1. गुप्त बातों को दूसरों के सामने प्रकट करना
- ✓ 2. जो व्यक्ति किसी की बात पर ध्यान नहीं देता
- ✗ 3. कुएँ से पानी निकालकर खेतों की सिंचाई करना
- ✗ 4. पुरानी वस्तुओं को संभालकर रखना

Q.6 दिए गए वाक्य में रिक्त स्थान के लिए उपयुक्त क्रिया चुनें।
अब हमारा सारा काम समाप्त .... को है।

Ans
- ✗ 1. चलने
- ✗ 2. करने
- ✗ 3. रहने
- ✓ 4. होने

Q.7 शुद्ध वर्तनी वाले वाक्य का चयन करें-

Ans
- ✗ 1. राहुल मीश्र एक ईमानदार इन्सान हैं
- ✓ 2. राहुल मिश्रा एक ईमानदार इन्सान हैं
- ✗ 3. राहुल मिर्श एक ईमानदार इन्सान हैं
- ✗ 4. राहुल मीश्रा एक ईमानदार इन्सान हैं

Q.8 निम्नलिखित वाक्य-खंडों का क्रम सही कीजिए।
अ. गोस्वामी तुलसीदास हिंदी
ब. भक्त कवि और
स. रामचरितमानस के रचयिता थे
द. साहित्य के महान

Ans
- ✗ 1. अ, ब, स, द
- ✗ 2. ब, अ, स, द
- ✓ 3. अ, द, ब, स
- ✗ 4. स, अ, ब, द

Q.9 निम्नलिखित में से वर्तनी के आधार पर शुद्ध वाक्य का चयन कीजिए:

Ans
- ✗ 1. ग्रामीण क्षेत्र में उड़नतस्तरी देखे जाने की अफवाह फैल गई।
- ✗ 2. ग्रामीण क्षेत्र में उड़नतशतरी देखे जाने की अफवाह फैल गई।
- ✗ 3. ग्रामीण क्षेत्र में उडनतश्तरी देखे जाने की अफवाह फैल गई।
- ✓ 4. ग्रामीण क्षेत्र में उड़नतश्तरी देखे जाने की अफवाह फैल गई।

Q.10 'मर्यादा का वश में होना' किस मुहावरे के अर्थ को दर्शा रहा है?

Ans
- ✗ 1. मुँह की खाना
- ✗ 2. नाक में दम करना
- ✓ 3. अपनी इज्जत अपने हाथ होना
- ✗ 4. नाक कटना

Q.11 सर्वोचित कारक चिह्न से दिए गए वाक्य का रिक्त स्थान पूर्ण करें—
सिंधु घाटी सभ्यता .... बारे में इतिहासकारों ने साक्ष्यों के आधार पर ही निष्कर्ष निकाला।

Ans
- ✗ 1. से
- ✗ 2. में
- ✗ 3. को
- ✓ 4. के

Q.12 समाचार पत्र में छपे महत्वपूर्ण विचारों का संक्षिप्त संग्रह प्रस्तुत करना हो, तो उसके लिए उपयुक्त एक-शब्द क्या होगा?

Ans
- ✗ 1. आलेख
- ✗ 2. रिपोर्ट
- ✗ 3. पत्रिका
- ✓ 4. सम्पादकीय

QuickSarkari.com | WhatsApp Channel | Telegram: t.me/quick_sarkari

Q.13 दिए गए शब्दों के सही अनुक्रम से बने वाक्य का चयन कीजिए-
'अभंग एक छंद है मराठी '

Ans
- ✗ 1. मराठी अभंग एक है छंद
- ✗ 2. छंद अभंग मराठी एक है
- ✓ 3. अभंग एक मराठी छंद है
- ✗ 4. है एक अभंग छंद मराठी

Q.14 'जिसे भय नहीं है' वाक्यांश के लिए सार्थक शब्द होगा -

Ans
- ✗ 1. निष्पाप
- ✗ 2. निर्णय
- ✗ 3. नि:शंक
- ✓ 4. निर्भय

Q.15 निम्नांकित विकल्पों में से उचित विशेषण का चयन करके वाक्य पूर्ण करें-
भारत विभाजन की............ने लाखों परिवारों को उजाड़ दिया था।

Ans
- ✗ 1. कौमुदी
- ✓ 2. त्रासदी
- ✗ 3. नौटंकी
- ✗ 4. व्यवस्था

Q.16 निम्नलिखित वाक्यांश के लिए सार्थक शब्द लिखें।
' आत्मा और परमात्मा का द्वैत अलग-अलग न मानने वाला'

Ans
- ✗ 1. द्वैतवादी
- ✗ 2. विशिष्टाद्वैतवादी
- ✓ 3. अद्वैतवादी
- ✗ 4. शुद्धाद्वैतवादी

Q.17 उपयुक्त 'कारक' चिह्न का चयन कर दिए गए वाक्य को पूर्ण कीजिए।
सास ने बहू..................जी भर कोसा ।'

Ans
- ✗ 1. पे
- ✗ 2. ने
- ✓ 3. को
- ✗ 4. से

Q.18 रिक्त स्थान में 'पूर्वकालिक क्रिया' के प्रयोग से वाक्य पूर्ण कीजिए-
कक्षा में अध्यापक के आने की सूचना _______ सभी विद्यार्थी अपनी-अपनी कुर्सियों पर शांति से बैठ गए।

Ans
- ✓ 1. सुनकर
- ✗ 2. सुनाया
- ✗ 3. सुनना
- ✗ 4. सुनता

Q.19 निम्नलिखित अव्यवस्थित क्रम वाले वाक्यों को क,ख,ग,घ की संज्ञा दी गई है इन्हें ध्यान से पढ़कर,दिए गए विकल्पों में से उचित वाक्य क्रम वाला विकल्प चुनिए, जिससे सही अनुच्छेद का निर्माण हो –

क -इसका उद्देश्य गुणवत्तापूर्ण शिक्षा प्रदान करना और अनुसंधान के लिए उपयुक्त वातावरण तैयार करना है।
ख - शिक्षा में सुधार और अनुसंधान को बढ़ावा देने के लिए, नई शिक्षा नीति (NEP) 2020 लागू की गई है।
ग -साथ ही शिक्षकों की गुणवत्ता पर ध्यान दिया जा रहा है।
घ – इसे प्राप्त करने के लिए, शिक्षा प्रणाली में संरचनात्मक बदलाव किया जा रहा है ।

Ans
- ✗ 1. ग क ख घ
- ✓ 2. ख क घ ग
- ✗ 3. क ग ख घ
- ✗ 4. घ ग ख क

Quick Sarkari

Q.20 'विष्णु का चक्र' वाक्यांश के लिए सार्थक शब्द है-

Ans
1. सुदर्शन ✔
2. नंदक ✘
3. कौस्तुभ ✘
4. कपर्द ✘

Section : **Hindi Language and Comprehension 2**

Q.1 रेखांकित शब्द में त्रुटि है , उसे पहचान कर शुद्ध करें
न्यायालय में प्रस्तुत किए गए सभी प्रमाण <u>प्रमाणिक</u> होने चाहिए।

Ans
1. प्रामाणीक ✘
2. प्रामणिक ✘
3. प्रामाणिक ✔
4. प्रमाणीक ✘

Q.2 निम्नलिखित में से किस वाक्य में 'उदार' के सही विलोम शब्द का प्रयोग हुआ है?

Ans
1. दूसरों पर दया करने वाला व्यक्ति बहुत कृपालु माना जाता है। ✘
2. वह हमेशा बड़ों से बहुत विनीत स्वर में बातचीत करता है। ✘
3. उसका संकुचित और अनुदार दृष्टिकोण समाज के लिए अच्छा नहीं है। ✔
4. वह बहुत बड़ा दानी राजा था जो सबको स्वर्ण मुद्राएँ देता था। ✘

Q.3 'हेठी' का तत्सम शब्द होगा -

Ans
1. हरीतकी ✘
2. अध:स्थिति ✔
3. लघुक ✘
4. समपर्य ✘

Q.4 निम्नलिखित में से वर्तनी के आधार पर शुद्ध वाक्य का चयन कीजिए:

Ans
1. इस मामले की जाच के लिए एक उच्च-स्तरीय समिति बनी है। ✘
2. इस मामले की जांच के लिए एक उच्च-स्तरीय समित बनी है। ✘
3. इस मामले की जाँच के लिए एक उच्चस्तरिय समिति बनी है। ✘
4. इस मामले की जाँच के लिए एक उच्चस्तरीय समिति बनी है। ✔

Q.5 'अरघट्ट' का तद्भव शब्द होगा -

Ans
1. रहट ✔
2. अरगनी ✘
3. अरहर ✘
4. अगहन ✘

Q.6 एक विश्वविद्यालय की बहस में एक पक्ष ने 'सहयोग' का समर्थन किया, जबकि दूसरे पक्ष ने उसके विपरीत शब्द का समर्थन किया। यदि आपको 'सहयोग' शब्द का विलोम चुनना हो, तो निम्नलिखित में से कौन-सा विकल्प सबसे उपयुक्त है?

Ans
1. अनुकूलता ✘
2. संवर्धन ✘
3. असहयोग ✔
4. सम्मति ✘

Q.7 दिए गए वाक्य में रेखांकित शब्द का विलोम शब्द क्या होगा?
दीपक की लौ से कमरे में बहुत विकीर्ण प्रकाश फैल रहा है।

Ans
- ✗ 1. सामूहिक
- ✓ 2. आकीर्ण
- ✗ 3. विकर्षण
- ✗ 4. प्रकीर्ण

Q.8 निम्नलिखित वाक्यों में किसमें देशज शब्द का सही प्रयोग हुआ है?

Ans
- ✗ 1. शेर जंगल में जोर-जोर से मिमियाने लगा।
- ✓ 2. बकरी अपने बच्चे को देखकर मिमियाने लगी।
- ✗ 3. गाय अपने बछड़े को देखकर मिमियाने लगी।
- ✗ 4. चिड़िया सुबह मधुर स्वर में मिमियाने लगी।

Q.9 निम्नलिखित में से विदेशज शब्द 'हवालात' के सही प्रयोग वाला वाक्य चुनिए-

Ans
- ✗ 1. आरोपी को हावालात में रखा गया।
- ✗ 2. आरोपी को हवालाथ में रखा गया।
- ✓ 3. आरोपी को हवालात में रखा गया।
- ✗ 4. आरोपी को हवालत में रखा गया।

Q.10 कविता में यौवन के सुख-दुख को बड़ी खूबसूरती से व्यक्त किया गया है।
वाक्य में प्रयुक्त यौवन शब्द का विलोम क्या है।

Ans
- ✗ 1. परिपक्वता
- ✗ 2. युवावस्था
- ✗ 3. प्रजनन
- ✓ 4. वार्धक्य

Q.11 निम्नलिखित में से किस वाक्य में 'ऊसर' के सही विलोम शब्द का प्रयोग हुआ है?

Ans
- ✓ 1. गंगा के मैदानों की मिट्टी बहुत ही उपजाऊ और खेती योग्य है।
- ✗ 2. रेगिस्तान की गर्मी में कठोर रास्तों पर चलना बहुत मुश्किल है।
- ✗ 3. भारत का नक्शा बहुत विस्तृत और विविधता से भरा हुआ है।
- ✗ 4. नदी के किनारे का समतल मैदान दौड़ने के लिए बहुत अच्छा है।

Q.12 देशज शब्द 'कोयला' का अशुद्ध प्रयोग किस विकल्प में हुआ है?

Ans
- ✗ 1. कोयले की खान प्रसिद्ध है।
- ✓ 2. कोयला विद्यालय में अध्यापन कर रहा है।
- ✗ 3. कोयले से ताप प्राप्त किया जाता है।
- ✗ 4. कोयला ईंधन के रूप में प्रयुक्त होता है।

Q.13 नीचे दिए गए वाक्य के किस भाग में त्रुटि है ?
'इसी महिने हमारी परीक्षा होगी।'

Ans
- ✓ 1. महिने
- ✗ 2. हमारी
- ✗ 3. परीक्षा
- ✗ 4. इसी

Q.14 निम्नलिखित में से किस वाक्य में 'उत्कर्ष' के सही विलोम शब्द का प्रयोग हुआ है?

Ans
- ✗ 1. इस वर्ष खेल प्रतियोगिता में उसने एक बड़ी उपलब्धि हासिल की।
- ✓ 2. गलत संगति और नशीले पदार्थों के सेवन से जीवन का अपकर्ष होता है।
- ✗ 3. नए उद्योगों के आने से राज्य का आर्थिक विकास तेज़ी से हो रहा है।
- ✗ 4. जीवन में निरंतर मेहनत करने से मनुष्य को उन्नति प्राप्त होती है।

Quick Sarkari

Q.15 **निम्नलिखित में से कौन-सा शब्द तद्भव है?**

Ans
- ✔ 1. प्यास
- ✘ 2. परिधान
- ✘ 3. पक्ष
- ✘ 4. पटल

Comprehension:

गद्यांश को ध्यानपूर्वक पढ़िए तथा उससे संबंधित प्रश्नों के उत्तर दीजिए-
देश-प्रेम है क्या ? प्रेम ही तो है। इस प्रेम का आलंबन क्या है ? सारा देश अर्थात् मनुष्य, पशु, पक्षी, नदी, नाले, वन, पर्वत सहित सारी भूमि। वह प्रेम किस प्रकार का है ? यह साहचर्यगत प्रेम है। जिनके बीच हम रहते हैं, जिन्हें बराबर आँखों से देखते हैं, जिनकी बातें बराबर सुनते रहते हैं, जिनका हमारा हर घड़ी का साथ रहता है। सारांश यह है कि जिनके सान्निध्य का हमें अभ्यास पड़ जाता है, उनके प्रति लोभ या राग हो सकता है। देश-प्रेम यदि वास्तव में यह अंतःकरण का कोई भाव है तो यही हो सकता है। यदि यह नहीं है तो वह कोरी बकवास या किसी और भाव के संकेत के लिए गढ़ा हुआ शब्द है।यदि किसी को अपने देश से सचमुच प्रेम है तो उसे अपने देश के मनुष्य, पशु, पक्षी, लता, गुल्म, पेड़, पत्ते, वन, पर्वत, नदी, निर्झर आदि सबसे प्रेम होगा, वह सबको चाहभरी दृष्टि से देखेगा, वह सबकी सुध करके विदेश में आँसू बहाएगा जो यह भी आँख भर नहीं देखते कि आम प्रणय-सौरभपूर्ण मंजरियों से कैसे लदे हुए हैं, जो यह भी नहीं झाँकते कि किसानों के झोंपड़ों के भीतर क्या हो रहा है, वे यदि दस बने-ठने मित्रों के बीच प्रत्येक भारतवासी की औसत आमदनी का पता बताकर देश-प्रेम का दावा करें तो उनसे पूछना चाहिए कि भाइयो! बिना रूप-परिचय का यह प्रेम कैसा ? उनसे कोसों दूर बैठे-बैठे, पड़े-पड़े या खड़े-खड़े तुम विलायती बोली में "अर्थशास्त्र की दुहाई दिया करो, पर प्रेम का नाम उसके साथ न घसीटो।" प्रेम हिसाब-किताब नहीं है। हिसाब-किताब करने वाले भाड़े पर भी मिल सकते हैं, पर प्रेम करने वाले नहीं।

SubQuestion No : 16

Q.16 **सच्चा देश-प्रेम किससे प्रगट होता है?**

Ans
- ✘ 1. शांति से
- ✘ 2. धर्मराज से
- ✔ 3. प्रकृति के प्रति प्रेम से
- ✘ 4. तेजस्वी लोगों से

Comprehension:

गद्यांश को ध्यानपूर्वक पढ़िए तथा उससे संबंधित प्रश्नों के उत्तर दीजिए-
देश-प्रेम है क्या ? प्रेम ही तो है। इस प्रेम का आलंबन क्या है ? सारा देश अर्थात् मनुष्य, पशु, पक्षी, नदी, नाले, वन, पर्वत सहित सारी भूमि। वह प्रेम किस प्रकार का है ? यह साहचर्यगत प्रेम है। जिनके बीच हम रहते हैं, जिन्हें बराबर आँखों से देखते हैं, जिनकी बातें बराबर सुनते रहते हैं, जिनका हमारा हर घड़ी का साथ रहता है। सारांश यह है कि जिनके सान्निध्य का हमें अभ्यास पड़ जाता है, उनके प्रति लोभ या राग हो सकता है। देश-प्रेम यदि वास्तव में यह अंतःकरण का कोई भाव है तो यही हो सकता है। यदि यह नहीं है तो वह कोरी बकवास या किसी और भाव के संकेत के लिए गढ़ा हुआ शब्द है।यदि किसी को अपने देश से सचमुच प्रेम है तो उसे अपने देश के मनुष्य, पशु, पक्षी, लता, गुल्म, पेड़, पत्ते, वन, पर्वत, नदी, निर्झर आदि सबसे प्रेम होगा, वह सबको चाहभरी दृष्टि से देखेगा, वह सबकी सुध करके विदेश में आँसू बहाएगा जो यह भी आँख भर नहीं देखते कि आम प्रणय-सौरभपूर्ण मंजरियों से कैसे लदे हुए हैं, जो यह भी नहीं झाँकते कि किसानों के झोंपड़ों के भीतर क्या हो रहा है, वे यदि दस बने-ठने मित्रों के बीच प्रत्येक भारतवासी की औसत आमदनी का पता बताकर देश-प्रेम का दावा करें तो उनसे पूछना चाहिए कि भाइयो! बिना रूप-परिचय का यह प्रेम कैसा ? उनसे कोसों दूर बैठे-बैठे, पड़े-पड़े या खड़े-खड़े तुम विलायती बोली में "अर्थशास्त्र की दुहाई दिया करो, पर प्रेम का नाम उसके साथ न घसीटो।" प्रेम हिसाब-किताब नहीं है। हिसाब-किताब करने वाले भाड़े पर भी मिल सकते हैं, पर प्रेम करने वाले नहीं।

SubQuestion No : 17

Q.17 **उपर्युक्त गद्यांश का उचित शीर्षक क्या है?**

Ans
- ✔ 1. देश-प्रेम
- ✘ 2. व्यापार
- ✘ 3. लोकतंत्र
- ✘ 4. होम्योपैथी

Comprehension:

गद्यांश को ध्यानपूर्वक पढ़िए तथा उससे संबंधित प्रश्नों के उत्तर दीजिए-
देश-प्रेम है क्या ? प्रेम ही तो है। इस प्रेम का आलंबन क्या है ? सारा देश अर्थात् मनुष्य, पशु, पक्षी, नदी, नाले, वन, पर्वत सहित सारी भूमि। वह प्रेम किस प्रकार का है ? यह साहचर्यगत प्रेम है। जिनके बीच हम रहते हैं, जिन्हें बराबर आँखों से देखते हैं, जिनकी बातें बराबर सुनते रहते हैं, जिनका हमारा हर घड़ी का साथ रहता है। सारांश यह है कि जिनके सान्निध्य का हमें अभ्यास पड़ जाता है, उनके प्रति लोभ या राग हो सकता है। देश-प्रेम यदि वास्तव में यह अंतःकरण का कोई भाव है तो यही हो सकता है। यदि यह नहीं है तो वह कोरी बकवास या किसी और भाव के संकेत के लिए गढ़ा हुआ शब्द है।यदि किसी को अपने देश से सचमुच प्रेम है तो उसे अपने देश के मनुष्य, पशु, पक्षी, लता, गुल्म, पेड़, पत्ते, वन, पर्वत, नदी, निर्झर आदि सबसे प्रेम होगा, वह सबको चाहभरी दृष्टि से देखेगा, वह सबकी सुध करके विदेश में आँसू बहाएगा जो यह भी आँख भर नहीं देखते कि आम प्रणय-सौरभपूर्ण मंजरियों से कैसे लदे हुए हैं, जो यह भी नहीं झाँकते कि किसानों के झोंपड़ों के भीतर क्या हो रहा है, वे यदि दस बने-ठने मित्रों के बीच प्रत्येक भारतवासी की औसत आमदनी का पता बताकर देश-प्रेम का दावा करें तो उनसे पूछना चाहिए कि भाइयो! बिना रूप-परिचय का यह प्रेम कैसा ? उनसे कोसों दूर बैठे-बैठे, पड़े-पड़े या खड़े-खड़े तुम विलायती बोली में "अर्थशास्त्र की दुहाई दिया करो, पर प्रेम का नाम उसके साथ न घसीटो।" प्रेम हिसाब-किताब नहीं है। हिसाब-किताब करने वाले भाड़े पर भी मिल सकते हैं, पर प्रेम करने वाले नहीं।

SubQuestion No : 18

Q.18 **"प्रेम हिसाब-किताब नहीं है।" का अर्थ है-**

Ans
- ✘ 1. प्रेम हास्यपद होता है।
- ✘ 2. प्रेम में आलम्बन नहीं होता।
- ✔ 3. प्रेम में लाभ-हानि नहीं देखी जाती।
- ✘ 4. प्रेम व्यापार है।

QuickSarkari.com | WhatsApp Channel | Telegram: t.me/quick_sarkari

Comprehension:

गद्यांश को ध्यानपूर्वक पढ़िए तथा उससे संबंधित प्रश्नों के उत्तर दीजिए-
देश-प्रेम है क्या ? प्रेम ही तो है। इस प्रेम का आलंबन क्या है ? सारा देश अर्थात् मनुष्य, पशु, पक्षी, नदी, नाले, वन, पर्वत सहित सारी भूमि। वह प्रेम किस प्रकार का है ? यह साहचर्यगत प्रेम है। जिनके बीच हम रहते हैं, जिन्हें बराबर आँखों से देखते हैं, जिनकी बातें बराबर सुनते रहते हैं, जिनका हमारा हर घड़ी का साथ रहता है। सारांश यह है कि जिनके सान्निध्य का हमें अभ्यास पड़ जाता है, उनके प्रति लोभ या राग हो सकता है। देश-प्रेम यदि वास्तव में यह अंतःकरण का कोई भाव है तो यही हो सकता है। यदि यह नहीं है तो वह कोरी बकवास या किसी और भाव के संकेत के लिए गढ़ा हुआ शब्द है।यदि किसी को अपने देश से सचमुच प्रेम है तो उसे अपने देश के मनुष्य, पशु, पक्षी, लता, गुल्म, पेड़, पत्ते, वन, पर्वत, नदी, निर्झर आदि सबसे प्रेम होगा, वह सबको चाहभरी दृष्टि से देखेगा, वह सबकी सुध करके विदेश में आँसू बहाएगा जो यह भी आँख भर नहीं देखते कि आम प्रणय-सौरभपूर्ण मंजरियों से कैसे लदे हुए हैं, जो यह भी नहीं झाँकते कि किसानों के झोंपड़ों के भीतर क्या हो रहा है, वे यदि दस बने-ठने मित्रों के बीच प्रत्येक भारतवासी की औसत आमदनी का पता बताकर देश-प्रेम का दावा करें तो उनसे पूछना चाहिए कि भाइयो! बिना रूप-परिचय का यह प्रेम कैसा ? उनसे कोसों दूर बैठे-बैठे, पड़े-पड़े या खड़े-खड़े तुम विलायती बोली में "अर्थशास्त्र की दुहाई दिया करो, पर प्रेम का नाम उसके साथ न घसीटो।" प्रेम हिसाब-किताब नहीं है। हिसाब-किताब करने वाले भाड़े पर भी मिल सकते हैं, पर प्रेम करने वाले नहीं।

SubQuestion No : 19

Q.19 **'संकेत' का क्या अर्थ है?**

Ans
- ✗ 1. तंग
- ✗ 2. शंका
- ✓ 3. इशारा
- ✗ 4. हिचक

Comprehension:

गद्यांश को ध्यानपूर्वक पढ़िए तथा उससे संबंधित प्रश्नों के उत्तर दीजिए-
देश-प्रेम है क्या ? प्रेम ही तो है। इस प्रेम का आलंबन क्या है ? सारा देश अर्थात् मनुष्य, पशु, पक्षी, नदी, नाले, वन, पर्वत सहित सारी भूमि। वह प्रेम किस प्रकार का है ? यह साहचर्यगत प्रेम है। जिनके बीच हम रहते हैं, जिन्हें बराबर आँखों से देखते हैं, जिनकी बातें बराबर सुनते रहते हैं, जिनका हमारा हर घड़ी का साथ रहता है। सारांश यह है कि जिनके सान्निध्य का हमें अभ्यास पड़ जाता है, उनके प्रति लोभ या राग हो सकता है। देश-प्रेम यदि वास्तव में यह अंतःकरण का कोई भाव है तो यही हो सकता है। यदि यह नहीं है तो वह कोरी बकवास या किसी और भाव के संकेत के लिए गढ़ा हुआ शब्द है।यदि किसी को अपने देश से सचमुच प्रेम है तो उसे अपने देश के मनुष्य, पशु, पक्षी, लता, गुल्म, पेड़, पत्ते, वन, पर्वत, नदी, निर्झर आदि सबसे प्रेम होगा, वह सबको चाहभरी दृष्टि से देखेगा, वह सबकी सुध करके विदेश में आँसू बहाएगा जो यह भी आँख भर नहीं देखते कि आम प्रणय-सौरभपूर्ण मंजरियों से कैसे लदे हुए हैं, जो यह भी नहीं झाँकते कि किसानों के झोंपड़ों के भीतर क्या हो रहा है, वे यदि दस बने-ठने मित्रों के बीच प्रत्येक भारतवासी की औसत आमदनी का पता बताकर देश-प्रेम का दावा करें तो उनसे पूछना चाहिए कि भाइयो! बिना रूप-परिचय का यह प्रेम कैसा ? उनसे कोसों दूर बैठे-बैठे, पड़े-पड़े या खड़े-खड़े तुम विलायती बोली में "अर्थशास्त्र की दुहाई दिया करो, पर प्रेम का नाम उसके साथ न घसीटो।" प्रेम हिसाब-किताब नहीं है। हिसाब-किताब करने वाले भाड़े पर भी मिल सकते हैं, पर प्रेम करने वाले नहीं।

SubQuestion No : 20

Q.20 **'आमदनी' का विलोम शब्द है-**

Ans
- ✗ 1. अनामंत्रित
- ✓ 2. खर्च
- ✗ 3. अनाशक्त
- ✗ 4. अनावृष्टि

Section : **English Language and Comprehension**

Q.1 **Which one-word substitute best fits the words given in quotes?**

Despite the disaster, the community showed remarkable 'ability to recover quickly from difficulties'.

Ans
- ✗ 1. Nostalgia
- ✗ 2. Gregariousness
- ✓ 3. Resilience
- ✗ 4. Credulity

Q.2 **Choose the most appropriate one-word substitute for the underlined expression.**
When challenged by the external examiner regarding the apparent methodological flaws in his thesis, the candidate attempted to <u>use ambiguous language so as to conceal the truth or avoid committing to a definitive answer.</u>

Ans
- ✗ 1. obfuscate
- ✓ 2. equivocate
- ✗ 3. pontificate
- ✗ 4. dissemble

QuickSarkari.com | WhatsApp Channel | Telegram: t.me/quick_sarkari

Q.3 A sentence has been divided into four parts. Identify the part that contains a grammatical error.
The revised proposal / is more superior /to the previous version / in addressing the identified concerns.

Ans
✗ 1. in addressing the identified concerns.
✗ 2. to the previous version
✗ 3. The revised proposal
✓ 4. is more superior

Q.4 Select the most appropriate antonym of the underlined word in the given sentence.
The witness appeared imperturbable throughout the proceedings.

Ans
✗ 1. circumspect
✓ 2. anxious
✗ 3. composed
✗ 4. detached

Q.5 A sentence divided into multiple segments is given below. The first segment is fixed, while the rest are jumbled. Rearrange the jumbled segments to form a coherent statement.
Time management enables students / (P) by prioritising important tasks / (Q) to achieve academic goals / (R) without compromising their well-being / (S) throughout the semester

Ans
✗ 1. SQRP
✗ 2. PRQS
✓ 3. QPRS
✗ 4. RPSQ

Q.6 Which one-word substitute best fits the words given in quotes?

His 'fondness for talking about oneself' made conversations with him repetitive.

Ans
✗ 1. Realism
✗ 2. Optimism
✓ 3. Egotism
✗ 4. Altruism

Q.7 Choose the most appropriate one-word substitute for the underlined expression.
When questioned about her groundbreaking interpretation of historical and psychological trauma in Han Kang's novels, the doctoral candidate responded with modesty and hesitation resulting from a lack of self-confidence, attributing the insights entirely to her external examiners.

Ans
✓ 1. diffidence
✗ 2. servility
✗ 3. trepidation
✗ 4. reticence

Q.8 Select the most appropriate meaning of the given proverb.

Don't wash your dirty linen in public.

Ans
✓ 1. Avoid discussing personal or family problems in public.
✗ 2. Public places are not meant for arguments.
✗ 3. Always keep your house and clothes clean.
✗ 4. Do not clean clothes in public places.

QuickSarkari.com | WhatsApp Channel | Telegram: t.me/quick_sarkari

Q.9 **Identify the erroneous part of the sentence.**
Among the two candidates, she is the best qualified.

Ans
✗ 1. Among the
✗ 2. two candidates,
✗ 3. she is
✓ 4. the best qualified.

Q.10 **Which of the following sentences contains an incorrect adjective collocation or grammatical construction?**

Ans
✗ 1. The channel delivered triple-digit growth for its mobile application by launching interactive superhero hybrid programs.
✓ 2. Many fans argued that the network's original programming was vastly superior than its acquired classic shows.
✗ 3. The studio's shorts unit spawned nine full series by allowing artists to work completely independently.
✗ 4. Creators often spend about nine months carefully developing a single eleven-minute episode for the animation network.

Q.11 **The following sentence has been divided into parts. One of them may contain an error. Select the part that contains the error from the given options. If you don't find any error, mark 'No error' as your answer.**

Those kind of conclusions (A) / often emerge from (B) / incomplete statistical analyses. (C) / No error (D)

Ans
✗ 1. D
✗ 2. C
✓ 3. A
✗ 4. B

Q.12 **Which of the following sentences contains an incorrect adjective collocation or grammatical construction?**

Ans
✗ 1. The regulatory body expressed serious concern over the increasingly frequent sexualisation of younger television talent.
✓ 2. The secretary-general noted that current compliance levels are as high, if not higher than, previous ones.
✗ 3. The council emphasized that networks targeting younger audiences needed to be significantly more careful.
✗ 4. Broadcasters argued that imposing additional programming restraints was much harder without specific separate classifications.

Q.13 **The first sentence is fixed. Arrange the following sentences in the most logical order to form a coherent paragraph.**
1. Academic writers frequently begin their research by gathering a wide range of source material.
2. This process becomes particularly important when different sources offer conflicting interpretations.
3. Simply collecting information from several sources, however, does not necessarily strengthen an argument.
4. Instead, writers must evaluate the evidence and determine how each source contributes to their central claim.
5. Such evaluation enables the distinction between evidence that merely supports an argument and evidence that complicates or challenges it.

Ans
✗ 1. 14253
✗ 2. 12354
✗ 3. 15432
✓ 4. 13425

Q.14 **Select the option that can be used as a one-word substitute for the underlined group of words in the given sentence.**

Reed is a <u>person who studies elections and voting patterns</u>.

Ans
✓ 1. Psephologist
✗ 2. Demographer
✗ 3. Sociologist
✗ 4. Statistician

Quick Sarkari

Q.15 **The following sentence has been divided into parts. One of them may contain an error. Select the part that contains the error from the given options. If you don't find any error, mark 'No error' as your answer.**

The proposed solution (A) / appears effectively (B) / under the current circumstances. (C) No error (D)

Ans
1. A
2. D
3. C
4. B ✓

Comprehension:

In the following passage, some words have been deleted. Fill in the blanks with the help of the alternatives given. Select the most appropriate option for each number.
Swamy was in his backyard, enjoying a sunny afternoon, when he decided to climb the large tree near his house. He carefully scaled up to the middle part of the tree and **(1)** ______ hit a beehive hanging from a branch. Before he realized what had happened, a swarm of angry bees was **(2)** _______ around him. They started attacking him **(3)**_______ and he couldn't escape. Swamy let out a loud **(4)**_____as the bees surrounded him. In a panic, he **(5)**_____down from the tree, landing safely but shaking from the experience.

SubQuestion No : 16

Q.16 **Select the most appropriate option to fill in blank 1.**

Ans
1. fervently
2. boorishly
3. accidentally ✓
4. stunningly

Comprehension:

In the following passage, some words have been deleted. Fill in the blanks with the help of the alternatives given. Select the most appropriate option for each number.
Swamy was in his backyard, enjoying a sunny afternoon, when he decided to climb the large tree near his house. He carefully scaled up to the middle part of the tree and **(1)** ______ hit a beehive hanging from a branch. Before he realized what had happened, a swarm of angry bees was **(2)** _______ around him. They started attacking him **(3)**_______ and he couldn't escape. Swamy let out a loud **(4)**_____as the bees surrounded him. In a panic, he **(5)**_____down from the tree, landing safely but shaking from the experience.

SubQuestion No : 17

Q.17 **Select the most appropriate option to fill in blank 2.**

Ans
1. ridging
2. fluttering
3. circling ✓
4. swamping

Comprehension:

In the following passage, some words have been deleted. Fill in the blanks with the help of the alternatives given. Select the most appropriate option for each number.
Swamy was in his backyard, enjoying a sunny afternoon, when he decided to climb the large tree near his house. He carefully scaled up to the middle part of the tree and **(1)** ______ hit a beehive hanging from a branch. Before he realized what had happened, a swarm of angry bees was **(2)** _______ around him. They started attacking him **(3)**_______ and he couldn't escape. Swamy let out a loud **(4)**_____as the bees surrounded him. In a panic, he **(5)**_____down from the tree, landing safely but shaking from the experience.

SubQuestion No : 18

Q.18 **Select the most appropriate option to fill in blank 3.**

Ans
1. fiercely ✓
2. assertively
3. alluringly
4. ostentatiously

QuickSarkari.com | WhatsApp Channel | Telegram: t.me/quick_sarkari

Comprehension:

In the following passage, some words have been deleted. Fill in the blanks with the help of the alternatives given. Select the most appropriate option for each number.
Swamy was in his backyard, enjoying a sunny afternoon, when he decided to climb the large tree near his house. He carefully scaled up to the middle part of the tree and **(1)** ______ hit a beehive hanging from a branch. Before he realized what had happened, a swarm of angry bees was **(2)** _______ around him. They started attacking him **(3)**_______ and he couldn't escape. Swamy let out a loud **(4)**_____as the bees surrounded him. In a panic, he **(5)**_____down from the tree, landing safely but shaking from the experience.

SubQuestion No : 19

Q.19 **Select the most appropriate option to fill in blank 4.**

Ans

✗ 1. shiver

✓ 2. scream

✗ 3. shrill

✗ 4. whine

Comprehension:

In the following passage, some words have been deleted. Fill in the blanks with the help of the alternatives given. Select the most appropriate option for each number.
Swamy was in his backyard, enjoying a sunny afternoon, when he decided to climb the large tree near his house. He carefully scaled up to the middle part of the tree and **(1)** ______ hit a beehive hanging from a branch. Before he realized what had happened, a swarm of angry bees was **(2)** _______ around him. They started attacking him **(3)**_______ and he couldn't escape. Swamy let out a loud **(4)**_____as the bees surrounded him. In a panic, he **(5)**_____down from the tree, landing safely but shaking from the experience.

SubQuestion No : 20

Q.20 **Select the most appropriate option to fill in blank 5.**

Ans

✗ 1. trapped

✗ 2. bundled

✗ 3. crumbled

✓ 4. tumbled

Quick Sarkari

Section : **English Language and Comprehension 2**

Q.1 **Select the option that uses the correct form of the future tense.**

Ans

✓ 1. The company will introduce new wired headphones after the current model is retired.

✗ 2. The company has introduced new wired headphones after the current model is retired.

✗ 3. The company introduced new wired headphones after the current model is retired.

✗ 4. The company will have introduced new wired headphones after the current model is retired.

Q.2 **Choose the most suitable opposite of the underlined word in the given sentence:**
The speaker gave a heartfelt panegyric, praising the philanthropist for his generous contributions to society.

Ans

✗ 1. oration

✓ 2. denunciation

✗ 3. testimony

✗ 4. gratification

Q.3 **Select the option where the given sentence has been correctly converted to its Passive form.**
The company has launched several innovative products this year.

Ans

✓ 1. Several innovative products have been launched by the company this year.

✗ 2. Several innovative products are launched by the company this year.

✗ 3. Several innovative products will be launched by the company this year.

✗ 4. Several innovative products had been launched by the company this year.

Q.4 **Select the option with the correct Passive voice usage.**
The panel may reconsider its earlier recommendations.

Ans
✔ 1. Its earlier recommendations may be reconsidered by the panel
✘ 2. The earlier recommendations could have been reconsidered by the panel
✘ 3. The panel might have reconsidered its earlier recommendations
✘ 4. Earlier recommendations will be reconsidered by the panel

Q.5 **Read the following sentence and convert it into indirect speech.**
He said, "I was waiting for the train."

Ans
✔ 1. He said that he had been waiting for the train.
✘ 2. He said that he was waited for the train.
✘ 3. He said that he had waited for the train.
✘ 4. He said that he has been waiting for the train.

Q.6 **Select the most appropriate meaning of the given proverb.**
Accidents will happen in the best regulated families

Ans
✘ 1. Time seems to pass more slowly when you're eagerly waiting for something
✘ 2. Stepping out of our comfort zone is the hardest step
✘ 3. Evil thoughts come to us easily when we are idle
✔ 4. Mishaps and setbacks are just a natural and inevitable part of life

Q.7 **Select the most appropriate option to fill in the blanks.**

If you drop the vase, it _____; I _____ it up right now so that nobody _____ hurt.

Ans
✘ 1. breaks; will pick; gets
✘ 2. breaks; pick; will get
✔ 3. will break; will pick; gets
✘ 4. will break; am going to pick; will get

Q.8 **Choose the correct meaning of the idiom given below.**

"A stitch in time saves nine."

Ans
✘ 1. One should focus on the bigger picture rather than small details.
✘ 2. It is better to wait for the right moment to act.
✔ 3. Taking quick action prevents bigger problems later.
✘ 4. Patience always leads to success.

Q.9 **Identify the antonym of the underlined word in the given sentence.**

The jellyfish blooms can <u>decimate</u> other fish species as they prey on fish larvae.

Ans
✔ 1. proliferate
✘ 2. destroy
✘ 3. deduce
✘ 4. flout

Q.10 **Convert the following sentence from indirect speech to direct speech.**
She told him that she had already completed the report.

Ans
✘ 1. She told him, "I would complete the report."
✔ 2. She said to him, "I have already completed the report."
✘ 3. She said to him, "I will complete the report."
✘ 4. She told him, "I had already complete the report."

QuickSarkari.com | WhatsApp Channel | Telegram: t.me/quick_sarkari

Comprehension:

Read the given passage and answer questions that follow.

The Hornbill Festival, often referred to as the "Festival of Festivals," is a vibrant and grand celebration of Nagaland's rich tribal heritage. Held annually in the first week of December at the Kisama Heritage Village, near Kohima, the festival serves as a confluence of the state's sixteen indigenous tribes, each showcasing its distinct traditions, music, dance, and craftsmanship. Instituted by the Government of Nagaland in 2000, the event aims to preserve and promote the state's diverse cultural identity while fostering unity among its tribes.
At the heart of the festival lies an array of cultural performances, including warrior dances, folk music, and indigenous games, which vividly illustrate the ethos and valor of Naga traditions. The Morungs—traditional tribal huts—serve as interactive spaces where visitors can immerse themselves in the customs, cuisines, and artisanal crafts of different communities. The festival also features the much-acclaimed Hornbill Rock Contest, an event that attracts musicians from across the country, adding a contemporary dimension to the celebrations.
Beyond its cultural significance, the Hornbill Festival has become a major tourist attraction, drawing global visitors and providing an economic boost to local artisans and entrepreneurs. It encapsulates the spirit of Nagaland's past while embracing modernity, making it a dynamic platform for cultural exchange and preservation. Ultimately, the festival is not merely a spectacle but a testament to the resilience, creativity, and communal harmony of the Naga people.

SubQuestion No : 11

Q.11 **What was the primary aim of establishing the Hornbill Festival in 2000?**

Ans
- ✗ 1. Promote Nagaland as a global economic hub
- ✓ 2. Foster inter-tribal unity while preserving indigenous customs
- ✗ 3. Replace traditional tribal festivals with a singular event
- ✗ 4. Integrate Western cultural influences with Naga traditions

Comprehension:

Read the given passage and answer questions that follow.

The Hornbill Festival, often referred to as the "Festival of Festivals," is a vibrant and grand celebration of Nagaland's rich tribal heritage. Held annually in the first week of December at the Kisama Heritage Village, near Kohima, the festival serves as a confluence of the state's sixteen indigenous tribes, each showcasing its distinct traditions, music, dance, and craftsmanship. Instituted by the Government of Nagaland in 2000, the event aims to preserve and promote the state's diverse cultural identity while fostering unity among its tribes.
At the heart of the festival lies an array of cultural performances, including warrior dances, folk music, and indigenous games, which vividly illustrate the ethos and valor of Naga traditions. The Morungs—traditional tribal huts—serve as interactive spaces where visitors can immerse themselves in the customs, cuisines, and artisanal crafts of different communities. The festival also features the much-acclaimed Hornbill Rock Contest, an event that attracts musicians from across the country, adding a contemporary dimension to the celebrations.
Beyond its cultural significance, the Hornbill Festival has become a major tourist attraction, drawing global visitors and providing an economic boost to local artisans and entrepreneurs. It encapsulates the spirit of Nagaland's past while embracing modernity, making it a dynamic platform for cultural exchange and preservation. Ultimately, the festival is not merely a spectacle but a testament to the resilience, creativity, and communal harmony of the Naga people.

SubQuestion No : 12

Q.12 **Which of the following aspects of the Hornbill Festival best represents its blend of traditional and contemporary cultural elements?**

Ans
- ✗ 1. The Morungs and their role in preserving tribal knowledge
- ✗ 2. The economic impact of tourism on local communities
- ✗ 3. The introduction of modern agricultural techniques through festival exhibits
- ✓ 4. The inclusion of folk performances alongside a national rock music contest

QuickSarkari.com | WhatsApp Channel | Telegram: t.me/quick_sarkari

Comprehension:

Read the given passage and answer questions that follow.

The Hornbill Festival, often referred to as the "Festival of Festivals," is a vibrant and grand celebration of Nagaland's rich tribal heritage. Held annually in the first week of December at the Kisama Heritage Village, near Kohima, the festival serves as a confluence of the state's sixteen indigenous tribes, each showcasing its distinct traditions, music, dance, and craftsmanship. Instituted by the Government of Nagaland in 2000, the event aims to preserve and promote the state's diverse cultural identity while fostering unity among its tribes.
At the heart of the festival lies an array of cultural performances, including warrior dances, folk music, and indigenous games, which vividly illustrate the ethos and valor of Naga traditions. The Morungs—traditional tribal huts—serve as interactive spaces where visitors can immerse themselves in the customs, cuisines, and artisanal crafts of different communities. The festival also features the much-acclaimed Hornbill Rock Contest, an event that attracts musicians from across the country, adding a contemporary dimension to the celebrations.
Beyond its cultural significance, the Hornbill Festival has become a major tourist attraction, drawing global visitors and providing an economic boost to local artisans and entrepreneurs. It encapsulates the spirit of Nagaland's past while embracing modernity, making it a dynamic platform for cultural exchange and preservation. Ultimately, the festival is not merely a spectacle but a testament to the resilience, creativity, and communal harmony of the Naga people.

SubQuestion No : 13

Q.13 **Based on the passage, which of the following best explains why the Hornbill Festival is referred to as the "Festival of Festivals"?**

Ans

✗ 1. It primarily focuses on musical performances that transcend tribal divisions.

✓ 2. It merges cultural expressions from multiple Naga tribes into a unified event.

✗ 3. It attracts more international visitors than any other festival in India.

✗ 4. It symbolizes the dominance of the hornbill bird in Naga folklore.

Comprehension:

Read the given passage and answer questions that follow.

The Hornbill Festival, often referred to as the "Festival of Festivals," is a vibrant and grand celebration of Nagaland's rich tribal heritage. Held annually in the first week of December at the Kisama Heritage Village, near Kohima, the festival serves as a confluence of the state's sixteen indigenous tribes, each showcasing its distinct traditions, music, dance, and craftsmanship. Instituted by the Government of Nagaland in 2000, the event aims to preserve and promote the state's diverse cultural identity while fostering unity among its tribes.
At the heart of the festival lies an array of cultural performances, including warrior dances, folk music, and indigenous games, which vividly illustrate the ethos and valor of Naga traditions. The Morungs—traditional tribal huts—serve as interactive spaces where visitors can immerse themselves in the customs, cuisines, and artisanal crafts of different communities. The festival also features the much-acclaimed Hornbill Rock Contest, an event that attracts musicians from across the country, adding a contemporary dimension to the celebrations.
Beyond its cultural significance, the Hornbill Festival has become a major tourist attraction, drawing global visitors and providing an economic boost to local artisans and entrepreneurs. It encapsulates the spirit of Nagaland's past while embracing modernity, making it a dynamic platform for cultural exchange and preservation. Ultimately, the festival is not merely a spectacle but a testament to the resilience, creativity, and communal harmony of the Naga people.

SubQuestion No : 14

Q.14 **Choose the antonym of "resilience" as used in the passage.**

Ans

✓ 1. Fragility

✗ 2. Vitality

✗ 3. Perseverance

✗ 4. Adaptability

Comprehension:

Read the given passage and answer questions that follow.

The Hornbill Festival, often referred to as the "Festival of Festivals," is a vibrant and grand celebration of Nagaland's rich tribal heritage. Held annually in the first week of December at the Kisama Heritage Village, near Kohima, the festival serves as a confluence of the state's sixteen indigenous tribes, each showcasing its distinct traditions, music, dance, and craftsmanship. Instituted by the Government of Nagaland in 2000, the event aims to preserve and promote the state's diverse cultural identity while fostering unity among its tribes.
At the heart of the festival lies an array of cultural performances, including warrior dances, folk music, and indigenous games, which vividly illustrate the ethos and valor of Naga traditions. The Morungs—traditional tribal huts—serve as interactive spaces where visitors can immerse themselves in the customs, cuisines, and artisanal crafts of different communities. The festival also features the much-acclaimed Hornbill Rock Contest, an event that attracts musicians from across the country, adding a contemporary dimension to the celebrations.
Beyond its cultural significance, the Hornbill Festival has become a major tourist attraction, drawing global visitors and providing an economic boost to local artisans and entrepreneurs. It encapsulates the spirit of Nagaland's past while embracing modernity, making it a dynamic platform for cultural exchange and preservation. Ultimately, the festival is not merely a spectacle but a testament to the resilience, creativity, and communal harmony of the Naga people.

SubQuestion No : 15

Q.15 What is the overall tone of the passage?

Ans

✔ 1. Celebratory and informative

✘ 2. Controversial and argumentative

✘ 3. Analytical yet skeptical

✘ 4. Nostalgic and melancholic

Comprehension:

Read the following passage carefully and answer the questions that follow:
The Gandhis belong to the Bania caste and seem to have been originally grocers. But for three generations, from my grandfather, they have been Prime Ministers in several Kathiawad States. Uttamchand Gandhi, *alias* Ota Gandhi, my grandfather, must have been a man of principle. State intrigues compelled him to leave Porbandar, where he was Diwan, and to seek refuge in Junagadh. There he saluted the Nawab with the left hand. Someone, noticing the apparent discourtesy, asked for an explanation, which was thus given: 'The right hand is already pledged to Porbandar.
Ota Gandhi married a second time, having lost his first wife. He had four sons by his first wife and two by his second wife. I do not think that in my childhood I ever felt or knew that these sons of Ota Gandhi were not all of the same mother. The fifth of these six brothers was Karamchand Gandhi, *alias* Kaba Gandhi, and the sixth was Tulsidas Gandhi. Both these brothers were Prime Ministers in Porbandar, one after the other. Kaba Gandhi was my father. He was a member of the Rajasthanik Court. It is now extinct, but in those days it was a very influential body for settling disputes between the chiefs and their fellow clansmen. He was for some time Prime Minister in Rajkot and then in Vankaner. He was a pensioner of the Rajkot State when he died.

SubQuestion No : 16

Q.16 Choose the most appropriate antonym of the word 'Influential'.

Ans

✘ 1. Dominant

✔ 2. Incapable

✘ 3. Effective

✘ 4. Massive

Comprehension:

Read the following passage carefully and answer the questions that follow:
The Gandhis belong to the Bania caste and seem to have been originally grocers. But for three generations, from my grandfather, they have been Prime Ministers in several Kathiawad States. Uttamchand Gandhi, *alias* Ota Gandhi, my grandfather, must have been a man of principle. State intrigues compelled him to leave Porbandar, where he was Diwan, and to seek refuge in Junagadh. There he saluted the Nawab with the left hand. Someone, noticing the apparent discourtesy, asked for an explanation, which was thus given: 'The right hand is already pledged to Porbandar.
Ota Gandhi married a second time, having lost his first wife. He had four sons by his first wife and two by his second wife. I do not think that in my childhood I ever felt or knew that these sons of Ota Gandhi were not all of the same mother. The fifth of these six brothers was Karamchand Gandhi, *alias* Kaba Gandhi, and the sixth was Tulsidas Gandhi. Both these brothers were Prime Ministers in Porbandar, one after the other. Kaba Gandhi was my father. He was a member of the Rajasthanik Court. It is now extinct, but in those days it was a very influential body for settling disputes between the chiefs and their fellow clansmen. He was for some time Prime Minister in Rajkot and then in Vankaner. He was a pensioner of the Rajkot State when he died.

SubQuestion No : 17

Q.17 Which of the following titles best reflects the main subject of the passage?

Ans

✘ 1. The Political Intrigue of Kathiawad

✘ 2. The Rise and Fall of the Rajasthanik Court

✘ 3. The History of the Bania Caste in India

✔ 4. The Ancestry and Career of Karamchand Gandhi

QuickSarkari.com | WhatsApp Channel | Telegram: t.me/quick_sarkari

Comprehension:

Read the following passage carefully and answer the questions that follow:
The Gandhis belong to the Bania caste and seem to have been originally grocers. But for three generations, from my grandfather, they have been Prime Ministers in several Kathiawad States. Uttamchand Gandhi, *alias* Ota Gandhi, my grandfather, must have been a man of principle. State intrigues compelled him to leave Porbandar, where he was Diwan, and to seek refuge in Junagadh. There he saluted the Nawab with the left hand. Someone, noticing the apparent discourtesy, asked for an explanation, which was thus given: 'The right hand is already pledged to Porbandar.
Ota Gandhi married a second time, having lost his first wife. He had four sons by his first wife and two by his second wife. I do not think that in my childhood I ever felt or knew that these sons of Ota Gandhi were not all of the same mother. The fifth of these six brothers was Karamchand Gandhi, *alias* Kaba Gandhi, and the sixth was Tulsidas Gandhi. Both these brothers were Prime Ministers in Porbandar, one after the other. Kaba Gandhi was my father. He was a member of the Rajasthanik Court. It is now extinct, but in those days it was a very influential body for settling disputes between the chiefs and their fellow clansmen. He was for some time Prime Minister in Rajkot and then in Vankaner. He was a pensioner of the Rajkot State when he died.

SubQuestion No : 18

Q.18 **What was Karamchand Gandhi's (Kaba Gandhi's) role in the Rajasthanik Court?**

Ans

✔ 1. He was a member of the court

✘ 2. He was the founder of the court

✘ 3. He was a historian of the court

✘ 4. He was a critic of the court

Comprehension:

Read the following passage carefully and answer the questions that follow:
The Gandhis belong to the Bania caste and seem to have been originally grocers. But for three generations, from my grandfather, they have been Prime Ministers in several Kathiawad States. Uttamchand Gandhi, *alias* Ota Gandhi, my grandfather, must have been a man of principle. State intrigues compelled him to leave Porbandar, where he was Diwan, and to seek refuge in Junagadh. There he saluted the Nawab with the left hand. Someone, noticing the apparent discourtesy, asked for an explanation, which was thus given: 'The right hand is already pledged to Porbandar.
Ota Gandhi married a second time, having lost his first wife. He had four sons by his first wife and two by his second wife. I do not think that in my childhood I ever felt or knew that these sons of Ota Gandhi were not all of the same mother. The fifth of these six brothers was Karamchand Gandhi, *alias* Kaba Gandhi, and the sixth was Tulsidas Gandhi. Both these brothers were Prime Ministers in Porbandar, one after the other. Kaba Gandhi was my father. He was a member of the Rajasthanik Court. It is now extinct, but in those days it was a very influential body for settling disputes between the chiefs and their fellow clansmen. He was for some time Prime Minister in Rajkot and then in Vankaner. He was a pensioner of the Rajkot State when he died.

SubQuestion No : 19

Q.19 **Why did Uttamchand Gandhi leave Porbandar and seek refuge in Junagadh?**

Ans

✘ 1. He was invited by the Nawab of Junagadh

✘ 2. He wanted to start a new business in Junagadh

✘ 3. He was appointed Prime Minister in Junagadh

✔ 4. State intrigues forced him to leave Porbandar

Comprehension:

Read the following passage carefully and answer the questions that follow:
The Gandhis belong to the Bania caste and seem to have been originally grocers. But for three generations, from my grandfather, they have been Prime Ministers in several Kathiawad States. Uttamchand Gandhi, *alias* Ota Gandhi, my grandfather, must have been a man of principle. State intrigues compelled him to leave Porbandar, where he was Diwan, and to seek refuge in Junagadh. There he saluted the Nawab with the left hand. Someone, noticing the apparent discourtesy, asked for an explanation, which was thus given: 'The right hand is already pledged to Porbandar.
Ota Gandhi married a second time, having lost his first wife. He had four sons by his first wife and two by his second wife. I do not think that in my childhood I ever felt or knew that these sons of Ota Gandhi were not all of the same mother. The fifth of these six brothers was Karamchand Gandhi, *alias* Kaba Gandhi, and the sixth was Tulsidas Gandhi. Both these brothers were Prime Ministers in Porbandar, one after the other. Kaba Gandhi was my father. He was a member of the Rajasthanik Court. It is now extinct, but in those days it was a very influential body for settling disputes between the chiefs and their fellow clansmen. He was for some time Prime Minister in Rajkot and then in Vankaner. He was a pensioner of the Rajkot State when he died.

SubQuestion No : 20

Q.20 **What was the primary occupation of the Gandhi family for three generations, according to the passage?**

Ans

✘ 1. Grocers

✘ 2. Merchants

✔ 3. Prime Ministers

✘ 4. Court Officials

QuickSarkari.com | WhatsApp Channel | Telegram: t.me/quick_sarkari

GOVT. OF NCT OF DELHI
Delhi Subordinate Services Selection Board
FC-18, Institutional Area, Karkardooma, Delhi – 110092.
www.dsssb.delhigovt.nic.in

Test Date	17/10/2026
Test Time	1:00 PM - 3:00 PM
Subject	Assistant Section Officer

Section : **General Awareness**

Q.1 अगस्त 2026 में, जब इलेक्ट्रॉनिकी और सूचना प्रौद्योगिकी मंत्रालय (MeitY) ने मोबाइल फोन विनिर्माण योजना (MPMS) को अधिसूचित किया, तो लक्षित वर्ग 2 (TS2) के तहत भारतीय ब्रांड के लिए निम्नलिखित में से कौन-सा पात्रता मानदंड निर्दिष्ट किया गया था?

Ans
- ✗ 1. संस्थागत निवेशकों के पास 51% से अधिक हिस्सेदारी होना
- ✗ 2. विदेशी मूल की कंपनियों के पास 51% से अधिक हिस्सेदारी होना
- ✗ 3. विदेशी निवेशकों के पास 51% से अधिक हिस्सेदारी होना
- ✓ 4. भारतीय नागरिकों के पास 51% से अधिक हिस्सेदारी होना

Q.2 भारत की महत्वपूर्ण रणनीतिक सुरंगों में से एक, सेला सुरंग किस राज्य में स्थित है?

Ans
- ✗ 1. सिक्किम
- ✗ 2. उत्तराखंड
- ✓ 3. अरुणाचल प्रदेश
- ✗ 4. हिमाचल प्रदेश

Q.3 जून 2026 में, किस भारतीय निजी क्षेत्र के बैंक ने भारत में ड्यूश बैंक रिटेल बैंकिंग (Deutsche Bank retail banking), एफ्लुएंट प्राइवेट बैंकिंग (affluent private banking) और वेल्थ मैनेजमेंट बिजनेस (wealth management business) के अधिग्रहण की घोषणा की थी?

Ans
- ✗ 1. एक्सिस बैंक (Axis Bank)
- ✓ 2. कोटक महिंद्रा बैंक (Kotak Mahindra Bank)
- ✗ 3. ICICI बैंक (ICICI Bank)
- ✗ 4. इंडसइंड बैंक (IndusInd Bank)

Q.4 कार्य-ऊर्जा प्रमेय के अनुसार, किसी वस्तु पर किया गया नेट कार्य उसकी _______________ में परिवर्तन के बराबर होता है।

Ans
- ✗ 1. स्थितिज उर्जा
- ✓ 2. गतिज ऊर्जा
- ✗ 3. न्यूक्लीय ऊर्जा
- ✗ 4. रासायनिक ऊर्जा

Q.5 कौन-सा नियम यह स्पष्ट करता है कि जल में हाइड्रोजन और ऑक्सीजन का द्रव्यमान अनुपात सदैव निश्चित होता है?

Ans
- ✗ 1. गुणित अनुपात का नियम (Law of Multiple Proportions)
- ✓ 2. स्थिर अनुपात का नियम (Law of Definite Proportions)
- ✗ 3. परमाणु संख्या नियम (Atomic Number Law)
- ✗ 4. द्रव्यमान संरक्षण का नियम (Law of Conservation of Mass)

QuickSarkari.com | WhatsApp Channel | Telegram: t.me/quick_sarkari

Q.6 अगस्त 2026 में दिल्ली-राष्ट्रीय राजधानी क्षेत्र (दिल्ली-NCR) में, कम प्रदूषण फैलाने वाले हल्के मालवाहक वाहनों (LGVs) में चरणबद्ध परिवर्तन को किस वैधानिक निकाय ने मंजूरी दी?

Ans
- ✗ 1. राष्ट्रीय हरित अधिकरण
- ✗ 2. केंद्रीय प्रदूषण नियंत्रण बोर्ड
- ✓ 3. वायु गुणवत्ता प्रबंधन आयोग
- ✗ 4. सड़क परिवहन और राजमार्ग मंत्रालय

Q.7 'द सेज हू रीइमेजिन्ड हिंदूइज़्म: द लाइफ, लेसन्स एंड लेगेसी ऑफ़ श्री नारायण गुरु (The Sage who Reimagined Hinduism: The Life, Lessons and Legacy of Sree Narayana Guru)', निम्नलिखित में से किसके द्वारा लिखी गई है?

Ans
- ✗ 1. चेतन भगत
- ✗ 2. अरुंधति रॉय
- ✗ 3. अमीष त्रिपाठी
- ✓ 4. शशि थरूर

Q.8 ऊष्मागतिक ताप का SI मूल मात्रक, केल्विन, किस भौतिक नियतांक का उपयोग करके परिभाषित किया जाता है?

Ans
- ✓ 1. बोल्ट्ज़मान नियतांक
- ✗ 2. प्रकाश की चाल
- ✗ 3. आवोगाद्रो नियतांक
- ✗ 4. प्लांक नियतांक

Q.9 "सन ऑफ नोबडी (Son of Nobody)" पुस्तक 31 मार्च 2026 को प्रकाशित हुई थी। निम्नलिखित में से किसने यह पुस्तक लिखी है?

Ans
- ✓ 1. यान मार्टेल (Yann Martel)
- ✗ 2. मार्गरेट एटवुड (Margaret Atwood)
- ✗ 3. मेडलीन मिलर (Madeline Miller)
- ✗ 4. कोल्म टोइबिन (Colm Tóibín)

Q.10 दसवीं पंचवर्षीय योजना (2002–2007) के दौरान कौन-सा प्रमुख योजनागत नवाचार पेश किया गया था?

Ans
- ✗ 1. वार्षिक संसाधन आवंटन के लिए रोलिंग योजनाओं की शुरुआत
- ✗ 2. औद्योगिक उत्पादन पर केंद्रीकृत नियंत्रण अपनाना
- ✓ 3. विकास के संकेतकों के लिए निगरानी योग्य लक्ष्य स्थापित करना
- ✗ 4. पंचवर्षीय योजनाओं के स्थान पर वार्षिक विकास कार्यक्रम शुरू करना

Q.11 मई 2026 में, किन देशों ने बुंडिबुग्यो (Bundibugyo) प्रजाति से जुड़े इबोला के प्रकोप की पुष्टि की?

Ans
- ✗ 1. घाना और इथियोपिया (Ghana and Ethiopia)
- ✗ 2. नाइजीरिया और केन्या (Nigeria and Kenya)
- ✓ 3. डी. आर. कांगो और युगांडा (D. R. Congo and Uganda)
- ✗ 4. सूडान और तंजानिया (Sudan and Tanzania)

Q.12 'कठपुतली' एक पारंपरिक पुतली प्रदर्शन है जिसमें लकड़ी की पुतलियों को डोरियों द्वारा संचालित किया जाता है तथा इनका उपयोग ऐतिहासिक आख्यानों, लोककथाओं और सामाजिक विषयों के वर्णन के लिए किया जाता है। पुतली कला का यह रूप पारंपरिक रूप से किस भारतीय राज्य से संबद्ध है?

Ans
- ✓ 1. राजस्थान
- ✗ 2. केरल
- ✗ 3. पश्चिम बंगाल
- ✗ 4. कर्नाटक

QuickSarkari.com | WhatsApp Channel | Telegram: t.me/quick_sarkari

Q.13 पेरिस हाउते कॉउचर वीक 2026 (Paris Haute Couture Week 2026) में किस भारतीय फैशन डिजाइनर का कलेक्शन 'देवी: द इटरनल म्यूज़' प्रदर्शित किया गया था?

Ans
- ✗ 1. मनीष मल्होत्रा
- ✗ 2. तरुण ताहिलियानी
- ✓ 3. राहुल मिश्रा
- ✗ 4. सब्यसाची मुखर्जी

Q.14 द्रव्य किस प्रावस्था संक्रमण में द्रव प्रावस्था से गुजरे बिना सीधे ठोस अवस्था से गैसीय अवस्था में बदल जाता है?

Ans
- ✗ 1. संलयन
- ✓ 2. ऊर्ध्वपातन
- ✗ 3. वाष्पन
- ✗ 4. संघनन

Q.15 योजनाबद्ध विकास अवधि (1947–1991) के दौरान, औद्योगीकरण को बढ़ावा देने हेतु भारत की पंचवर्षीय योजनाओं में किस क्षेत्र को सबसे अधिक प्राथमिकता मिली?

Ans
- ✓ 1. औद्योगिक क्षेत्र
- ✗ 2. बैंकिंग क्षेत्र
- ✗ 3. सेवा क्षेत्र
- ✗ 4. कृषि क्षेत्र

Q.16 नवरेह, पारंपरिक नव वर्ष उत्सव, किस समुदाय द्वारा मनाया जाता है?

Ans
- ✗ 1. सिंधी हिंदू
- ✓ 2. कश्मीरी पंडित
- ✗ 3. मैथिली ब्राह्मण
- ✗ 4. कोंकणी हिंदू

Q.17 अंतर्राष्ट्रीय बुकर पुरस्कार 2026 में पुस्तक 'ताइवान ट्रैवलॉग (Taiwan Travelogue)' की सफलता में लिन किंग (Lin King) की क्या विशिष्ट भूमिका है?

Ans
- ✓ 1. लिन किंग ने अपने अनुवाद के माध्यम से इस किताब को पात्र बनाया।
- ✗ 2. लिन किंग 2026 में इस पुरस्कार के लिए जज थी।
- ✗ 3. लिन किंग ने सह-लेखक के रूप में कथा को आकार देने का कार्य किया।
- ✗ 4. लिन किंग ने इस पुस्तक को ताइवान में प्रकाशित किया था।

Q.18 भारत का कौन-सा शास्त्रीय नृत्य रूप अपने विस्तृत अभिनय (अभिव्यंजक कथावाचन) के लिए जाना जाता है और पारंपरिक रूप से विशाल किरीटमों (अलंकारिक शीर्षवस्त्र), विस्तृत सौंदर्य प्रसाधन और वेशभूषा धारण करने वाले पुरुष कलाकारों द्वारा प्रस्तुत किया जाता है?

Ans
- ✗ 1. भरतनाट्यम
- ✗ 2. कुचीपुड़ी
- ✗ 3. मणिपुरी
- ✓ 4. कथकली

Q.19 'वायुशक्ति-26 (Vayushakti-26)' किस फायरिंग रेंज पर आयोजित किया गया था?

Ans
- ✗ 1. बबीना फील्ड फायरिंग रेंज (Babina Field Firing Range)
- ✗ 2. महाजन फील्ड फायरिंग रेंज (Mahajan Field Firing Range)
- ✗ 3. चुशूल रेंज (Chushul Range)
- ✓ 4. पोखरण फील्ड फायरिंग रेंज (Pokhran Field Firing Range)

QuickSarkari.com | WhatsApp Channel | Telegram: t.me/quick_sarkari

Q.20 मार्च 2026 में, रक्षा अधिग्रहण परिषद (DAC) ने लगभग ₹2.38 लाख करोड़ के प्रस्तावों के लिए आवश्यकता की स्वीकृति (AoN) प्रदान की। भारतीय सेना के लिए निम्नलिखित में से किसे मंजूरी दी गई थी?

Ans
- ✗ 1. नाभिकीय ऊर्जा संचालित विमान वाहक पोत
- ✓ 2. वायु रक्षा ट्रैक प्रणाली
- ✗ 3. वाणिज्यिक उपग्रह प्रक्षेपण यान
- ✗ 4. दीर्घ-दूरी यात्री विमान

Section : **General Awareness 2**

Q.1 1857 के विद्रोह के बाद लागू किए गए 'भारत के बेहतर शासन के लिए अधिनियम' (अगस्त 1858) ने 'बोर्ड ऑफ़ कंट्रोल' और 'कोर्ट ऑफ़ डायरेक्टर्स' को समाप्त कर दिया और भारत पर सर्वोच्च प्रशासनिक अधिकार किस नए बने ब्रिटिश कैबिनेट कार्यालय को सौंप दिया?

Ans
- ✗ 1. सेक्रेटरी ऑफ स्टेट फॉर द कॉलोनीज़ (Secretary of State for the Colonies)
- ✗ 2. सेक्रेटरी ऑफ स्टेट फॉर फॉरेन अफेयर्स (Secretary of State for Foreign Affairs)
- ✓ 3. सेक्रेटरी ऑफ स्टेट फॉर इंडिया (Secretary of State for India)
- ✗ 4. सेक्रेटरी ऑफ स्टेट फॉर वार (Secretary of State for War)

Q.2 वर्ष 2013 के किस सर्वोच्च न्यायालय के निर्णय ने निर्वाचन आयोग को इलेक्ट्रॉनिक वोटिंग मशीनों पर NOTA विकल्प उपलब्ध कराने का निर्देश दिया था?

Ans
- ✗ 1. एसोसिएशन फॉर डेमोक्रेटिक रिफॉर्म्स बनाम भारत संघ
- ✗ 2. कॉमन कॉज बनाम भारत संघ
- ✓ 3. पीपुल्स यूनियन फॉर सिविल लिबर्टीज बनाम भारत संघ
- ✗ 4. लिली थॉमस बनाम भारत संघ

Q.3 1905 का स्वदेशी और बहिष्कार आंदोलन, मुख्य रूप से किस औपनिवेशिक निर्णय की सीधी प्रतिक्रिया के रूप में कलकत्ता टाउन हॉल में औपचारिक रूप से शुरू किया गया था?

Ans
- ✓ 1. लॉर्ड कर्जन द्वारा बंगाल का विभाजन
- ✗ 2. ऑल इंडिया मुस्लिम लीग का गठन
- ✗ 3. रॉलेट एक्ट का अधिनियमन
- ✗ 4. जलियांवाला बाग हत्याकांड

Q.4 कौन-सी कंपनी 17वीं शताब्दी के आरंभ में भारत आई और उसने पुर्तगालियों से अलग, मुख्य रूप से वाणिज्यिक वर्चस्व, विशेषकर मसाला व्यापार पर ध्यान केंद्रित करते हुए सूरत, भरूच, कोचीन, नागपट्टिनम और मसूलीपट्टनम में व्यापारिक केंद्र स्थापित किए?

Ans
- ✗ 1. डेनिश ईस्ट इंडिया कंपनी
- ✗ 2. ब्रिटिश ईस्ट इंडिया कंपनी
- ✗ 3. फ्रेंच ईस्ट इंडिया कंपनी
- ✓ 4. डच ईस्ट इंडिया कंपनी

Q.5 चरमपंथी राष्ट्रवादियों की राजनीतिक विचारधारा से जुड़े और बिपिन चंद्र पाल तथा श्री अरबिंदो द्वारा संपादित प्रभावशाली अंग्रेजी दैनिक वंदे मातरम को कलकत्ता में किस वर्ष शुरू किया गया था?

Ans
- ✗ 1. 1905
- ✓ 2. 1906
- ✗ 3. 1907
- ✗ 4. 1908

Q.6 निम्नलिखित में से कौन-सी विशेषता, भारत के पूर्वी तटीय मैदान को पश्चिमी तटीय मैदान की तुलना में अधिक चौड़ा बनाती है?

Ans
- ✗ 1. पश्चिमी घाट की अधिक ऊंचाई
- ✓ 2. व्यापक नदी डेल्टाओं की उपस्थिति
- ✗ 3. ज्वालामुखी पठारों का निर्माण
- ✗ 4. बड़े रेगिस्तानी क्षेत्रों की उपस्थिति

QuickSarkari.com | WhatsApp Channel | Telegram: t.me/quick_sarkari

Q.7 1855-1856 के दौरान राजमहल पहाड़ियों के दमीन-ए-कोह क्षेत्र में केंद्रित, ब्रिटिश औपनिवेशिक प्राधिकारियों और साहूकारों के विरुद्ध किस प्रमुख जनजातीय विद्रोह का नेतृत्व दो भाइयों, सिद्दु और कान्हू मुर्मू ने किया था?

Ans
✗ 1. पाइका विद्रोह
✗ 2. चुआर विद्रोह
✓ 3. संथाल विद्रोह
✗ 4. भील विद्रोह

Q.8 निम्नलिखित में से किस संवैधानिक प्राधिकारी की शपथ या प्रतिज्ञान का प्रारूप भारतीय संविधान की तीसरी अनुसूची में विहित है?

Ans
✗ 1. भारत के उपराष्ट्रपति
✓ 2. भारत के नियंत्रक और महालेखा परीक्षक
✗ 3. भारत के राष्ट्रपति
✗ 4. राज्यों के राज्यपाल

Q.9 बोगीबील ब्रिज (Bogibeel Bridge), जिसका वर्ष 2018 में असम में उद्घाटन किया गया था, किस नदी पर स्थित है और यह किन जिलों को आपस में जोड़ता है?

Ans
✗ 1. बराक — कछार और हैलाकांडी
✓ 2. ब्रह्मपुत्र — डिब्रूगढ़ और धेमाजी
✗ 3. मानस — बारपेटा और बोंगाईगाँव
✗ 4. सुबंसरी — लखीमपुर और सोनितपुर

Q.10 अक्टूबर के दौरान, दक्षिण-पश्चिम मानसून के पीछे हटने की शुरुआत के बावजूद, उत्तरी मैदानों में लोग प्रायः असहज मौसम का अनुभव करते हैं। निम्नलिखित में से कौन-सा संयोजन इस स्थिति की सर्वोत्तम व्याख्या करता है?

Ans
✓ 1. उच्च तापमान और भूमि द्वारा संचित की गई आर्द्रता
✗ 2. बढ़ता हुआ दाब और ठंडी उत्तरी पवनें
✗ 3. गिरता हुआ तापमान और शुष्क महाद्वीपीय वायु
✗ 4. कम हुई आर्द्रता और तीव्र रात्रिकालीन शीतलन

Q.11 पवन की क्रिया और भौतिक अपक्षय के कारण थार मरुस्थल में सामान्यतः कौन-सी भौतिक आकृति पाई जाती है?

Ans
✗ 1. शैल भृगु
✗ 2. कार्स्ट स्थलाकृतियाँ
✗ 3.
बेसाल्ट स्तंभ
✓ 4. छत्रक शैल

Q.12 संविधान के किस अनुच्छेद के अधीन प्रत्येक राज्य के लिए एक उच्च न्यायालय का प्रावधान है?

Ans
✓ 1. अनुच्छेद 214
✗ 2. अनुच्छेद 216
✗ 3. अनुच्छेद 212
✗ 4. अनुच्छेद 217

Q.13 समष्टि आर्थिक क्षेत्रीय लेखांकन में, तृतीयक क्षेत्र को प्राथमिक और द्वितीयक उत्पादन से कार्यात्मक रूप से कैसे पृथक किया जाता है?

Ans
✗ 1. प्राकृतिक पारिस्थितिकी तंत्र से प्राप्त होने वाली जैवभौतिकीय उपज के प्रत्यक्ष विनियोजन पर पूरी तरह निर्भर रहकर
✗ 2. कार्बनिक पदार्थों के प्रत्यक्ष भौतिक रूपांतरण और रासायनिक संश्लेषण में विशेष रूप से संलग्न होकर
✓ 3. मूर्त भौतिक वस्तुओं के स्थान पर अमूर्त उपयोगिता और अवसंरचना सहायता का सृजन करके
✗ 4. गैर-आर्थिक नागरिक श्रम के माध्यम से औपचारिक मौद्रिक विनिमय प्रणालियों के पूरी तरह से बाहर परिचालन से

Q.14 भारत में राष्ट्रीय आपातकाल की घोषणा के आधार के रूप में किस संविधान संशोधन द्वारा 'आंतरिक अशांति' (internal disturbance) वाक्यांश को 'सशस्त्र विद्रोह' (armed rebellion) से प्रतिस्थापित किया गया था?

Ans
- ✗ 1. 42वां संशोधन अधिनियम
- ✓ 2. 44वां संशोधन अधिनियम
- ✗ 3. 86वां संशोधन अधिनियम
- ✗ 4. 61वां संशोधन अधिनियम

Q.15 निम्नलिखित में से किस राज्य में निवल बोए गए क्षेत्र (NSA) का हिस्सा राष्ट्रीय औसत से अधिक है?

Ans
- ✓ 1. पंजाब
- ✗ 2. सिक्किम
- ✗ 3. नागालैंड
- ✗ 4. मिजोरम

Q.16 भारत में, कौन-सी भौतिक विशेषताएं अरब सागर और बंगाल की खाड़ी के अपवाह तंत्रों के बीच मुख्य जल विभाजक के रूप में कार्य करती हैं?

Ans
- ✗ 1. विंध्य और सतपुड़ा
- ✓ 2. दिल्ली कटक, अरावली और सह्याद्रि
- ✗ 3. हिमालय और अरावली
- ✗ 4. पश्चिमी घाट और सतपुड़ा

Q.17 अप्रैल 2026 में, प्रधानमंत्री श्री नरेंद्र मोदी ने उत्तर प्रदेश में किस 594 km लंबे एक्सेस-कंट्रोल्ड ग्रीनफील्ड एक्सप्रेसवे का उद्घाटन किया?

Ans
- ✗ 1. बुंदेलखंड एक्सप्रेसवे
- ✗ 2. पूर्वांचल एक्सप्रेसवे
- ✓ 3. गंगा एक्सप्रेसवे
- ✗ 4. आगरा-लखनऊ एक्सप्रेसवे

Q.18 1707 में किस मुगल सम्राट के निधन को इतिहासकार आमतौर पर वह निर्णायक मोड़ मानते हैं जिसके बाद 18वीं शताब्दी में मुगल साम्राज्य का तेजी से पतन और राजनीतिक विघटन हुआ?

Ans
- ✗ 1. अकबर
- ✓ 2. औरंगज़ेब
- ✗ 3. शाहजहाँ
- ✗ 4. जहांगीर

Q.19 2003 के 91वें संविधान संशोधन अधिनियम द्वारा अंतःस्थापित भारत के संविधान के अनुच्छेद 164(1A) के अनुसार, किसी राज्य की मंत्रिपरिषद में मुख्यमंत्री सहित मंत्रियों की न्यूनतम अनुमत संख्या कितनी है?

Ans
- ✗ 1. दस सदस्य
- ✗ 2. पांच सदस्य
- ✓ 3. बारह सदस्य
- ✗ 4. पंद्रह सदस्य

Q.20 भारत के संविधान के अनुच्छेद 262 के अंतर्गत, कौन-सा निकाय अंतर-राज्यीय नदियों के जल के उपयोग, वितरण या नियंत्रण से संबंधित किसी भी विवाद के न्यायनिर्णयन हेतु कानून द्वारा प्रदान करने का अधिकार रखता है?

Ans
- ✗ 1. राष्ट्रीय हरित अधिकरण
- ✗ 2. संबंधित राज्यों के उच्च न्यायालय
- ✓ 3. भारत की संसद
- ✗ 4. भारत का सर्वोच्च न्यायालय

Section : **General Intelligence and Reasoning Ability**

QuickSarkari.com | WhatsApp Channel | Telegram: t.me/quick_sarkari

Q.1 R, S, T, U, V और W एक ही इमारत के छह अलग-अलग तलों पर रहते हैं। इमारत में सबसे निचले तल का क्रमांक 1 है, उसके ठीक ऊपर वाले तल का क्रमांक 2 है और इसी प्रकार सबसे ऊपर वाले तल का क्रमांक 6 है।
V सबसे ऊपरी तल पर रहता है। V और S के बीच केवल तीन लोग रहते हैं। T, S के नीचे वाली तल पर रहता है। W सम क्रमांक वाले तल पर रहता है। R विषम क्रमांक वाले तल पर रहती है, लेकिन तल क्रमांक 5 पर नहीं।
U और S के बीच कितने लोग रहते हैं?

Ans
- ✗ 1. तीन
- ✗ 2. एक
- ✗ 3. चार
- ✓ 4. दो

Q.2 A, B, C, D, E, F और G एक सीधी पंक्ति में उत्तर दिशा की ओर अभिमुख होकर बैठे हैं। D और G के बीच केवल दो व्यक्ति बैठे हैं। C के दाईं ओर केवल E बैठा है। G और C के बीच केवल एक व्यक्ति बैठा है। A, B के दाईं ओर किसी स्थान पर लेकिन F के बाईं ओर किसी स्थान पर बैठा है। F के दाईं ओर कितने व्यक्ति बैठे हैं?

Ans
- ✗ 1. तीन
- ✗ 2. एक
- ✗ 3. चार
- ✓ 4. दो

Q.3 निम्नलिखित संख्या और प्रतीक श्रृंखला को देखें और प्रश्न का उत्तर दें (सभी संख्याएं केवल एक अंक की हैं)। गिनती केवल बाएं से दाएं की जानी है।
(बाएं) 7 4 < 6 9 6 # @ 4 6 8 4 5 7 * 8 3 1 % 4 & 5 = 8 (दाएं)
ऐसे कितने प्रतीक हैं, जिनमें से प्रत्येक के ठीक पहले एक विषम संख्या है और ठीक बाद एक सम संख्या है?

Ans
- ✗ 1. दो
- ✗ 2. एक भी नहीं
- ✓ 3. तीन
- ✗ 4. एक

Q.4 निम्नलिखित अक्षर, संख्या, प्रतीक श्रृंखला का संदर्भ लीजिए तथा दिए गए प्रश्न का उत्तर दीजिए। गिनती बाएं से दाएं की जानी है। सभी संख्याएं एकल-अंकीय संख्याएं हैं।
(बाएं) @ 3 7 * & S T D 4 E 6 2 R Y % K 5 + # G C (दाएं)
ऐसे कितने अक्षर हैं, जिनमें से प्रत्येक के ठीक पहले एक प्रतीक है और ठीक बाद में एक संख्या भी है?

Ans
- ✗ 1. 2
- ✓ 2. 1
- ✗ 3. 3
- ✗ 4. 0

Q.5 अमित बिंदु A से गाड़ी चलाना शुरू करता है और पश्चिम की ओर 65 km गाड़ी चलाता है। इसके बाद वह दाएं मुड़कर 71 km चलता है, फिर दाएँ मुड़कर 81 km चलता है। इसके बाद वह दाएँ मुड़कर 89 km गाड़ी चलाता है। अंत में वह दाएँ मुड़कर 16 km गाड़ी चलाता है और बिंदु P पर रुक जाता है। बिंदु A पर वापस पहुँचने के लिए उसे कितनी दूर (न्यूनतम दूरी) और किस दिशा में गाड़ी चलानी चाहिए? (जब तक अन्यथा न कहा जाए, सभी मोड़ 90 डिग्री के हैं)

Ans
- ✗ 1. 21 km, दक्षिण की ओर
- ✗ 2. 19 km,उत्तर की ओर
- ✓ 3. 18 km, उत्तर की ओर
- ✗ 4. 20 km, उत्तर की ओर

Q.6 सात व्यक्ति F, G, H, I, V, W, और X एक सीधी पंक्ति में उत्तर की ओर अभिमुख होकर बैठे हैं। F के दाईं ओर कोई नहीं बैठा है। F और V के बीच केवल दो व्यक्ति बैठे हैं। H और I के बीच केवल तीन व्यक्ति बैठे हैं। V, I के ठीक बाईं ओर पड़ोस में बैठा है। W, G के ठीक दाईं ओर पड़ोस में बैठा है। X और W के बीच कितने व्यक्ति बैठे हैं?

Ans
- ✗ 1. शून्य
- ✓ 2. दो
- ✗ 3. तीन
- ✗ 4. एक

Q.7 निम्नलिखित में से किन अक्षर-समूहों द्वारा # और % को प्रतिस्थापित किया जाना चाहिए ताकि :: के बाईं ओर के अक्षर-समूह युग्म के बीच अनुसरण किया गया पैटर्न और संबंध, :: के दाईं ओर के अक्षर-समूह युग्म के बीच अनुसरण किए गए पैटर्न और संबंध के समान हो?
: RAJ :: NWF : %

Ans
❌ 1. # = MTC , % = UDM
❌ 2. # = KLC , % = UDM
❌ 3. # = KTC , % = UDI
✔ 4. # = KTC , % = UDM

Q.8 छह बॉक्स X, Y, Z, W, V और U एक के ऊपर एक रखे गए हैं, लेकिन यह जरूरी नहीं है कि वे इसी क्रम में रखे गए हों। Z को सबसे नीचे से तीसरे स्थान पर रखा गया है। Y को W के ठीक नीचे रखा गया है। Y और U के बीच ठीक दो बॉक्स रखे गए हैं। X को Z के ठीक ऊपर रखा गया है। सबसे ऊपर से दूसरे स्थान पर किस बॉक्स को रखा गया है?

Ans
✔ 1. Y
❌ 2. U
❌ 3. W
❌ 4. V

Q.9 एक फोटो की ओर संकेत करते हुए, श्री X ने कहा कि "वह मेरे पुत्र के भाई के पिता की पत्नी है।" महिला का श्री X से क्या संबंध है?

Ans
❌ 1. पत्नी की माता
❌ 2. बहन
❌ 3. माता
✔ 4. पत्नी

Q.10 शब्द VOLUME के प्रत्येक अक्षर को अंग्रेज़ी वर्णमाला में उसके अगले अक्षर से प्रतिस्थापित किया जाता है, और फिर इस प्रकार प्राप्त सभी अक्षरों को अंग्रेज़ी वर्णमाला के क्रमानुसार व्यवस्थित किया जाता है। इस प्रकार बने अक्षरों के नए समूह में दाएं से चौथा अक्षर कौन-सा होगा?

Ans
✔ 1. N
❌ 2. M
❌ 3. V
❌ 4. P

Q.11 सात बॉक्स, J, K, L, M, P, Q और R, एक के ऊपर एक रखे हैं, लेकिन ज़रूरी नहीं कि वे इसी क्रम में रखे गए हों।
केवल J को R के ऊपर रखा गया है। R और K के बीच केवल दो बॉक्स रखे गए हैं। केवल L को M के नीचे रखा गया है। Q को K के ठीक ऊपर नहीं रखा गया है।
P और L के बीच कितने बॉक्स रखे गए हैं?

Ans
❌ 1. चार
❌ 2. एक
✔ 3. दो
❌ 4. तीन

Q.12 निम्नलिखित अक्षर, संख्या और प्रतीक श्रृंखला का संदर्भ लीजिए तथा दिए गए प्रश्न का उत्तर दीजिए। (सभी संख्याएं केवल एक अंक वाली संख्याएं हैं।)
(बाएं) C 9 F 2 L 5 ^ Q $ 8 G N 4 P 3 * S @ 6 U 7 & X (दाएं)
यदि सभी संख्याओं को हटा दिया जाए, तो निम्नलिखित में से कौन-सा दाईं ओर से छठा होगा?

Ans
❌ 1. @
❌ 2. P
❌ 3. S
✔ 4. *

QuickSarkari.com | WhatsApp Channel | Telegram: t.me/quick_sarkari

Q.13 एक निश्चित कूट भाषा में,
"survey data researcher collects" को "tA tS cK pO" के रूप में कूटबद्ध किया जाता है,
"data project survey needs" को "IG tS eH cK" के रूप में कूटबद्ध किया जाता है,
"careful survey researcher analyses" को "cK hB tA yG" के रूप में कूटबद्ध किया जाता है।
(यहाँ सभी कूट केवल दो अक्षरों के कूट हैं।)
दी गई भाषा में 'data' को कैसे कूटबद्ध किया गया है?

Ans
1. tS ✔
2. cK ✘
3. IG ✘
4. tA ✘

Q.14 यह प्रश्न निम्नलिखित शब्दों पर आधारित है।
RIL HMT BSE EAR

प्रत्येक शब्द में, प्रत्येक स्वर को अंग्रेजी वर्णमाला क्रम में उसके ठीक बाद वाले अक्षर से बदल दिया जाता है और प्रत्येक व्यंजन को अंग्रेजी वर्णमाला क्रम में उसके ठीक पहले वाले अक्षर से बदल दिया जाता है। इस प्रकार निर्मित कितने अक्षर-समूहों में कोई स्वर नहीं होगा?

Ans
1. एक भी नहीं ✘
2. तीन ✔
3. एक ✘
4. दो ✘

Q.15 एक निश्चित कूट भाषा में,
A + B का अर्थ है कि 'A, B की बहन है'
A @ B का अर्थ है कि 'A, B का भाई है'
A # B का अर्थ है कि 'A, B की पत्नी है'
A ÷ B का अर्थ है कि 'A, B का पिता है'
उपर्युक्त के आधार पर, यदि 'X@Y+L#O÷P' है, तो X का P से क्या संबंध है?

Ans
1. माता का भाई ✔
2. माता के पिता ✘
3. भाई ✘
4. पिता ✘

Q.16 एक निश्चित कूट भाषा में,
"pilot monitors cockpit radar" को "nI zG mN wQ" के रूप में कूटबद्ध किया जाता है,
"airport radar supports cockpit" को "wQ zG yV wR" के रूप में कूटबद्ध किया जाता है,
"flies cockpit trained pilot" को "cE mN zG kL" के रूप में कूटबद्ध किया जाता है।
(यहाँ सभी कूट केवल दो अक्षरों के कूट हैं।)
दी गई भाषा में 'radar' को कैसे कूटबद्ध किया गया है?

Ans
1. kL ✘
2. cE ✘
3. mN ✘
4. wQ ✔

Q.17 शब्द GARDENS के प्रत्येक स्वर को अंग्रेजी वर्णमाला क्रम में उसके ठीक बाद वाले अक्षर से बदल दिया जाता है, और प्रत्येक व्यंजन को अंग्रेजी वर्णमाला क्रम में उसके ठीक पहले वाले अक्षर से बदल दिया जाता है। इस प्रकार बने अक्षरों के नए समूह में कितने अक्षर ठीक दो बार दिखाई देंगे?

Ans
1. 3 ✘
2. 0 ✘
3. 1 ✔
4. 2 ✘

QuickSarkari.com | WhatsApp Channel | Telegram: t.me/quick_sarkari

Q.18 निम्नलिखित त्रिकों में, अक्षरों का प्रत्येक समूह एक निश्चित तर्क के अनुसार अगले समूह से संबंधित है। दिए गए विकल्पों में से वह विकल्प चुनिए जो उसी तर्क का अनुसरण करता है।
HEAL - LAHE - HAEL
LEAF - FALE - LAEF

Ans
✔ 1. JOIN - NIJO - JION
✘ 2. RING - RNIG - GNIR
✘ 3. LIME - EMLI - IMLE
✘ 4. SNOW - NOSW - NOWS

Q.19 S, T, O, R, E और D एक ही इमारत की छह अलग-अलग मंजिलों पर रहते हैं। इमारत की सबसे निचली मंजिल का क्रमांक 1 है, उसके ऊपर वाली मंजिल का क्रमांक 2 है, और इसी तरह सबसे ऊपरी मंजिल का क्रमांक 6 है।
S एक सम क्रमांक वाली मंजिल पर रहता है, लेकिन चौथी मंजिल पर नहीं। S और D के बीच केवल दो व्यक्ति रहते हैं। R एक विषम क्रमांक वाली मंजिल पर रहता है, लेकिन सबसे निचली मंजिल पर नहीं। R और T के बीच केवल दो व्यक्ति रहते हैं। E, R के ठीक नीचे रहता है। O और E के बीच कितने व्यक्ति रहते हैं?

Ans
✘ 1. चार
✘ 2. तीन
✘ 3. एक
✔ 4. दो

Q.20 यह प्रश्न नीचे दी गई पाँच तीन अंकों की संख्याओं पर आधारित है।
(बाएं) 627 705 228 233 209 (दाएं)
(उदाहरण - 697 – पहला अंक = 6, दूसरा अंक = 9 और तीसरा अंक = 7)
यदि दूसरी सबसे बड़ी संख्या के तीसरे अंक को दूसरी सबसे छोटी संख्या के तीसरे अंक में जोड़ा जाए, तो परिणाम क्या होगा?

Ans
✘ 1. 13
✘ 2. 14
✘ 3. 17
✔ 4. 15

Section : **General Intelligence and Reasoning Ability 2**

Q.1 दी गई श्रृंखला में '?' के स्थान पर क्या आना चाहिए?
3, 11, 27, 51, 83, ?

Ans
✘ 1. 128
✘ 2. 125
✘ 3. 110
✔ 4. 123

Quick Sarkari

Q.2 उस वेन आरेख का चयन करें, जो निम्नलिखित वर्गों के बीच के संबंध को सर्वोत्तम रूप से दर्शाता है।
Parrot (P), Bed (B), Card (C)

Ans

✗ 1.
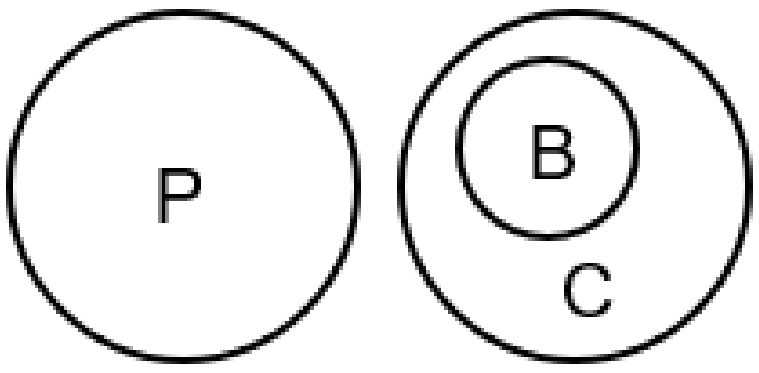

✓ 2.
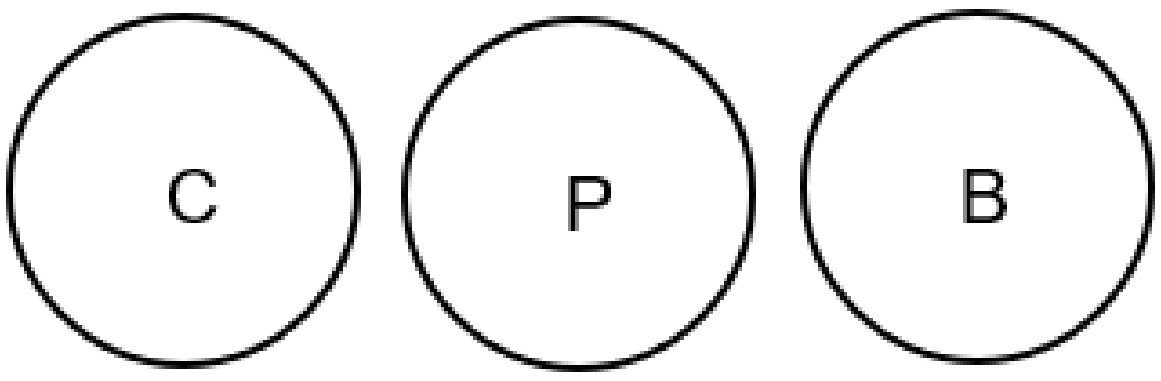

✗ 3.
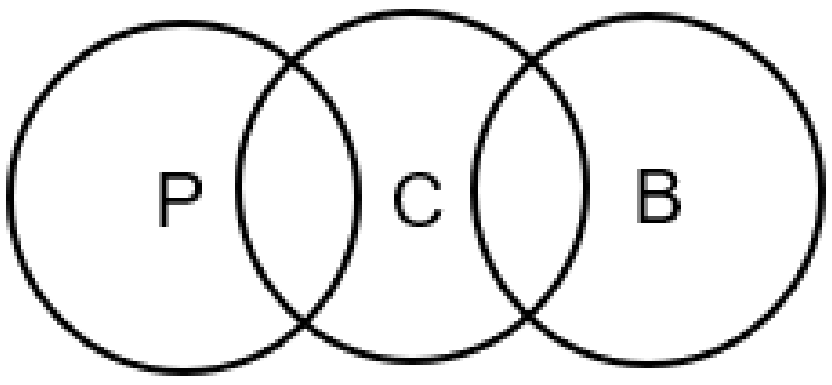

✗ 4.
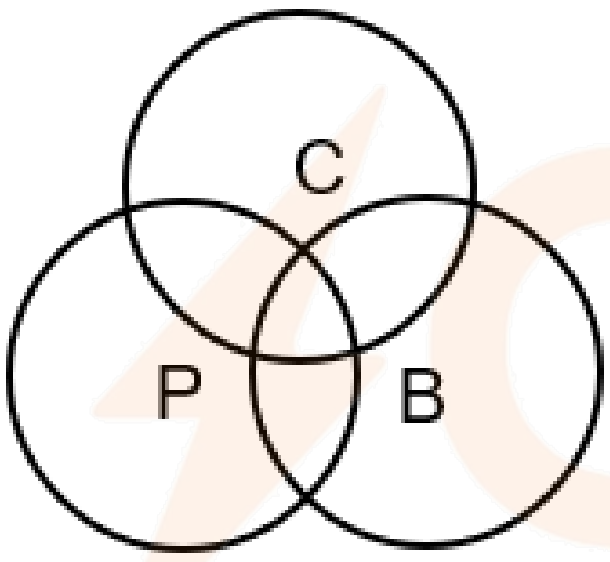

Q.3 निम्नलिखित वर्गों के बीच के संबंध को सर्वोत्तम रूप से दर्शाने वाले आरेख का चयन कीजिए:

कैमरा, प्रिंटर, डिवाइस (Cameras, Printers, Devices)

Ans

✗ 1.

✗ 2.
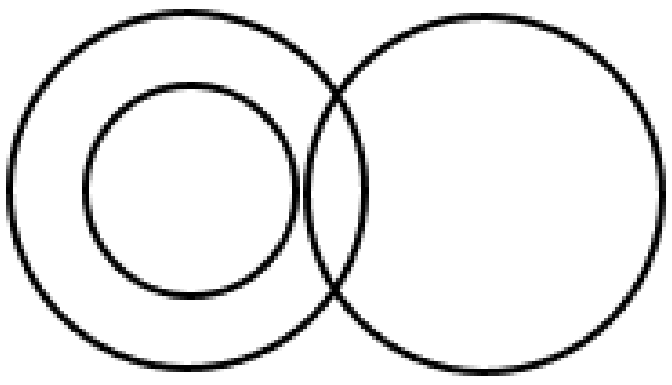

✓ 3.
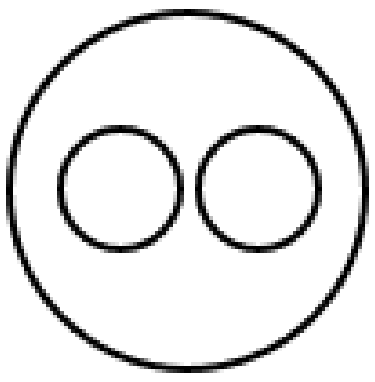

✗ 4.
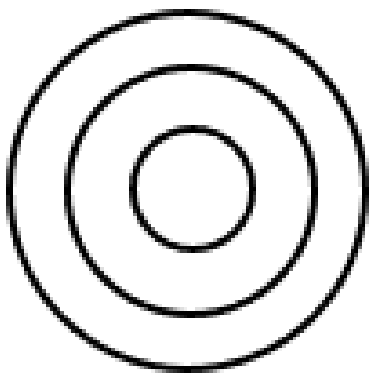

Quick Sarkari

QuickSarkari.com | WhatsApp Channel | Telegram: t.me/quick_sarkari

Q.4 इस प्रश्न में, एक प्रश्न का पश्चात (I) और (II) क्रमांकित दो कथन दिए गए हैं। आपको यह निर्धारित करना है कि कथनों में उपलब्ध आंकड़े प्रश्न का उत्तर देने के लिए पर्याप्त हैं या नहीं। दोनों कथनों को पढ़िए और उपयुक्त उत्तर का चयन कीजिए।

पाँच पेड़ों—A, F, K, P और X—में से प्रत्येक की लंबाई अलग-अलग है, कौन-सा पेड़ सबसे लंबा है?

कथन I: K केवल एक पेड़ से लंबा है। P, F से छोटा है लेकिन A से लंबा है।
कथन II: P, X से लंबा है।

Ans
✔ 1. कथन I और II दोनों (अकेले कथन I या अकेले कथन II नहीं) संयुक्त रूप से प्रश्न का उत्तर देने के लिए पर्याप्त है।
✘ 2. कथन I और II दोनों संयुक्त रूप से प्रश्न का उत्तर देने के लिए पर्याप्त नहीं है।
✘ 3. कथन II में दी गई जानकारी अकेले प्रश्न का उत्तर देने के लिए पर्याप्त है जबकि कथन I में दी गई जानकारी अकेले प्रश्न का उत्तर देने के लिए पर्याप्त नहीं है।
✘ 4. कथन I में दी गई जानकारी अकेले प्रश्न का उत्तर देने के लिए पर्याप्त है जबकि कथन II में दी गई जानकारी अकेले प्रश्न का उत्तर देने के लिए पर्याप्त नहीं है।

Q.5 यदि 'A' का अर्थ '÷' है, 'B' का अर्थ 'x' है, 'C' का अर्थ '+' है और 'D' का अर्थ '-' है, तो निम्नलिखित समीकरण में प्रश्न-चिह्न '?' के स्थान पर क्या आएगा?
163 C 61 B 6 D 264 A 4 =?

Ans
✘ 1. 461
✔ 2. 463
✘ 3. 462
✘ 4. 464

Q.6 उस समुच्चय का चयन कीजिए जिसमें संख्याएँ उसी तरीके से संबंधित हैं जिस तरीके से निम्नलिखित समुच्चयों की संख्याएँ संबंधित हैं।

(नोट: संख्याओं को उनके घटक अंकों में तोड़े बिना, संक्रियाएँ पूर्ण संख्याओं पर की जानी चाहिए। उदाहरण के लिए 13 को लीजिए – 13 पर संक्रियाएँ जैसे 13 में जोड़ना / घटाना / गुणा करना आदि 13 पर की जा सकती हैं। 13 को 1 और 3 में तोड़ना और फिर 1 और 3 पर गणितीय संक्रियाएँ करने की अनुमति नहीं है।)

(49, 140, 14)
(38, 148, 24)

Ans
✘ 1. (25, 112, 22)
✘ 2. (18, 107, 25)
✘ 3. (37, 142, 24)
✔ 4. (3, 36, 10)

Q.7 अंग्रेज़ी वर्णमाला क्रम पर आधारित, निम्नलिखित चार अक्षर-समूहों में से तीन एक निश्चित रूप से समान हैं और इस प्रकार वे एक ग्रुप बनाते हैं। कौन-सा अक्षर-समूह उस ग्रुप से संबंधित नहीं है?
(नोट: असंगत अक्षर-समूह, व्यंजनों/स्वरों की संख्या या उनकी स्थिति पर आधारित नहीं है।)

Ans
✘ 1. FLJ
✔ 2. CIH
✘ 3. MSQ
✘ 4. KQO

QuickSarkari.com | WhatsApp Channel | Telegram: t.me/quick_sarkari

Q.8 जब दर्पण को नीचे दर्शाए गए अनुसार "MN" पर रखा जाता है, तो दिए गए संयोजन के सही दर्पण प्रतिबिंब का चयन करें।

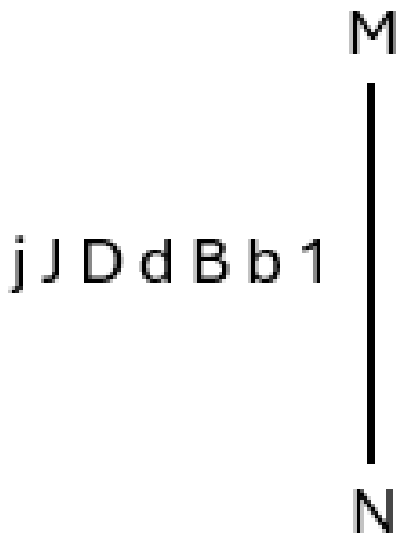

Ans

✔ 1.

✘ 2.

✘ 3.

✘ 4.

Q.9 यदि नीचे दर्शाई गई आकृति के अनुसार, जल स्रोत को X-Y के अनुदिश रखा जाता है, तो दिए गए विकल्पों में से कौन-सा विकल्प दी गई आकृति का जल प्रतिबिंब होगा?

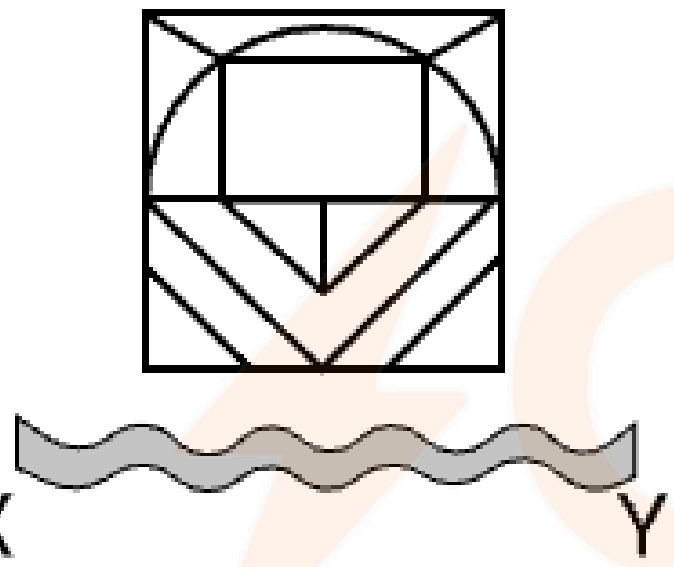

Ans

✘ 1. 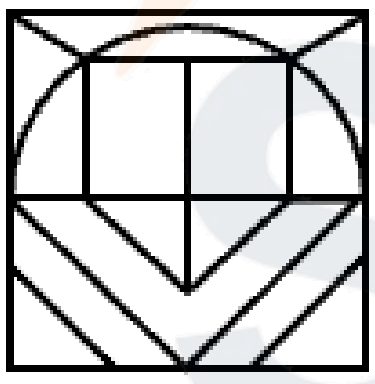

✔ 2. 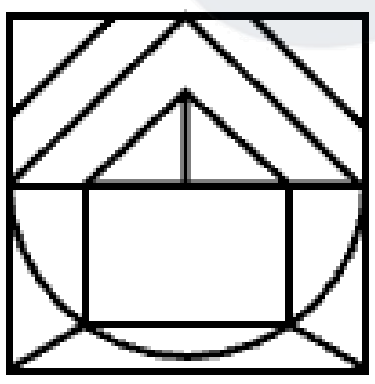

✘ 3. 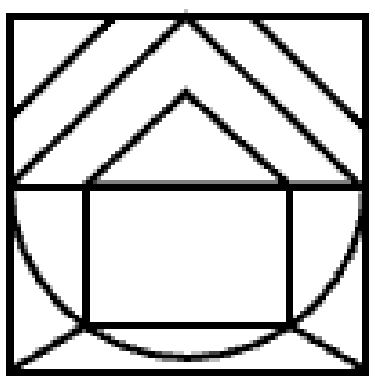

✘ 4. 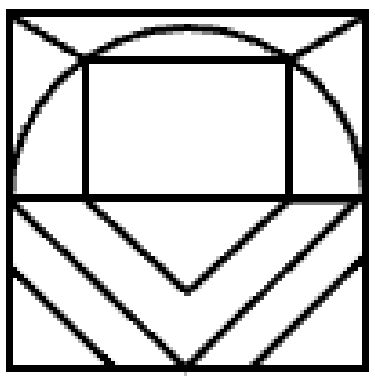

Quick Sarkari

Q.10 दी गई श्रृंखला में '?' के स्थान पर क्या आना चाहिए?

231 171 257 152 283 133 ?

Ans

✘ 1. 291

✔ 2. 309

✘ 3. 301

✘ 4. 283

Q.11 यदि संख्या 3748295 के प्रत्येक सम अंक में 1 जोड़ दिया जाए और प्रत्येक विषम अंक में से 2 घटा दिया जाए, तो बाएं से तीसरे अंक और दाएं से तीसरे अंक का योगफल कितना होगा?

Ans
- ✗ 1. 5
- ✗ 2. 7
- ✗ 3. 3
- ✓ 4. 8

Q.12 अंग्रेजी वर्णमाला क्रम पर आधारित, निम्नलिखित चार अक्षर-समूहों में से तीन एक निश्चित तरीके से एकसमान हैं और इस प्रकार वे एक ग्रुप बनाते हैं। कौन-सा अक्षर-समूह, उस ग्रुप से संबंधित नहीं है? (नोट: असंगत अक्षर-समूह, व्यंजनों/स्वरों की संख्या या उनकी स्थिति पर आधारित नहीं है।)

Ans
- ✗ 1. KPT
- ✓ 2. JOT
- ✗ 3. HMQ
- ✗ 4. UZD

Q.13 दी गई श्रृंखला में प्रश्न-चिन्ह (?) के स्थान पर कौन सा अक्षर-संख्या समूह आएगा ताकि यह तार्किक रूप से पूर्ण हो जाए?
LRY53 , GMT70 , BHO87 , WCJ104 , ?

Ans
- ✗ 1. RYE121
- ✓ 2. RXE121
- ✗ 3. SXE121
- ✗ 4. RXF121

Q.14 यदि 5123847 के प्रत्येक अंक में 1 जोड़ दिया जाए, और फिर अंकों को आरोही क्रम में पुनर्व्यवस्थित किया जाए, तो नई संख्या में बाईं ओर से पहले अंक और दाईं ओर से पहले अंक का योगफल कितना होगा?

Ans
- ✓ 1. 11
- ✗ 2. 9
- ✗ 3. 12
- ✗ 4. 10

Q.15 दी गई श्रृंखला में '?' के स्थान पर क्या आना चाहिए?
56 51 46 41 36 ?

Ans
- ✗ 1. 32
- ✗ 2. 33
- ✓ 3. 31
- ✗ 4. 30

QuickSarkari.com | WhatsApp Channel | Telegram: t.me/quick_sarkari

Q.16 जब दर्पण को नीचे दर्शाए गए अनुसार AB पर रखा जाता है, तो दी गई आकृति के सही दर्पण प्रतिबिंब का चयन करें।

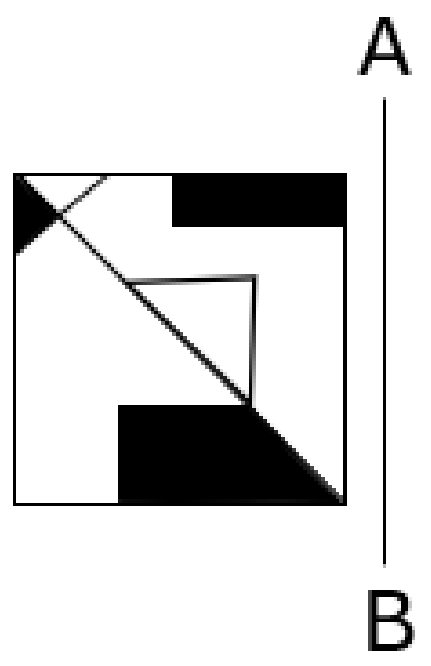

Ans

✗ 1. 

✔ 2. 

✗ 3. 

✗ 4.

Q.17 यहाँ प्रश्न के बाद (I) और (II) से क्रमांकित दो कथन दिए गए हैं। आपको यह तय करना है कि कथनों में दी गई जानकारी प्रश्न का उत्तर देने के लिए पर्याप्त है या नहीं। दोनों कथनों को ध्यानपूर्वक पढ़िए और उपयुक्त उत्तर का चयन कीजिए।
प्रश्न:
पाँच खंभों T, R, Q, W और V में से, प्रत्येक की लंबाई अलग-अलग है, इनमें से कौन-सा खंभा सबसे लंबा है?
कथन:
(I) W, R से लंबा है। R, V से लंबा है।
(II) V, T से छोटा है परंतु Q से लंबा है।

Ans

✗ 1. कथन I में दिया गया डेटा अकेले प्रश्न का उत्तर देने के लिए पर्याप्त है, जबकि कथन II में दिया गया डेटा अकेले प्रश्न का उत्तर देने के लिए पर्याप्त नहीं है।

✗ 2. कथन II में दिया गया डेटा अकेले प्रश्न का उत्तर देने के लिए पर्याप्त है, जबकि कथन I में दिया गया डेटा अकेले प्रश्न का उत्तर देने के लिए पर्याप्त नहीं है।

✗ 3. कथन I और II दोनों संयुक्त रूप से (और न कि केवल कथन I अकेले या कथन II अकेले) प्रश्न का उत्तर देने के लिए पर्याप्त हैं।

✔ 4. कथन I और II दोनों संयुक्त रूप से प्रश्न का उत्तर देने के लिए पर्याप्त नहीं हैं।

QuickSarkari.com | WhatsApp Channel | Telegram: t.me/quick_sarkari

Q.18 इस प्रश्न में, तीन कथन दिए गए हैं, जिनके बाद I और II क्रमांकित दो निष्कर्ष दिए गए हैं। यह मानते हुए कि कथनों में दी गई जानकारी सत्य है, भले ही वह सामान्यतः ज्ञात तथ्यों से भिन्न प्रतीत होती हो, तय करें कि दिए गए निष्कर्षों में से कौन-से निष्कर्ष, कथनों का तार्किक रूप से अनुसरण करते हैं।
कथन: सभी प्लेटें, चमगादड़ हैं। कुछ ड्रिलर, कैमरे हैं। सभी कैमरे, चमगादड़ हैं।
निष्कर्ष (I): सभी ड्रिलर, चमगादड़ हैं।
निष्कर्ष (II): कुछ प्लेटें, कैमरे हैं।

Ans
- ✗ 1. केवल निष्कर्ष II अनुसरण करता है।
- ✗ 2. केवल निष्कर्ष I अनुसरण करता है।
- ✗ 3. निष्कर्ष I और II दोनों अनुसरण करते हैं।
- ✓ 4. न तो निष्कर्ष I और न ही निष्कर्ष II अनुसरण करता है।

Q.19 उस समुच्चय का चयन करें जिसमें संख्याएँ उसी प्रकार संबंधित हैं जिस प्रकार निम्नलिखित समुच्चयों की संख्याएँ संबंधित हैं।
(नोट: संख्याओं को उनके घटक अंकों में तोड़े बिना, पूर्ण संख्याओं पर संक्रियाएं की जानी चाहिए। उदाहरण के लिए 13 को लीजिए 13 पर संक्रियाएं जैसे कि 13 में जोड़ना / घटाना / गुणा करना आदि, 13 पर की जा सकती हैं। 13 को 1 और 3 में तोड़ने तथा फिर 1 और 3 पर गणितीय संक्रियाएं करने की अनुमति नहीं है।)
(11,12,264)
(14,12,336)

Ans
- ✗ 1. (16,11,302)
- ✗ 2. (15,10,350)
- ✓ 3. (13,14,364)
- ✗ 4. (17,8,282)

Q.20 एक निश्चित तर्क के अनुसार, 3 का संबंध 30 से है। उसी तर्क का अनुसरण करते हुए, 5 का संबंध 128 से है। समान तर्क का अनुसरण करने पर, 7 का संबंध निम्नलिखित में से किससे है?

Ans
- ✗ 1. 336
- ✗ 2. 352
- ✓ 3. 346
- ✗ 4. 341

Quick Sarkari

Section : **Arithmetical and Numerical Ability**

Q.1 8 × [2 + (6 ÷ 3)] का सरलीकृत मान ज्ञात कीजिए।

Ans
- ✗ 1. 18
- ✗ 2. 16
- ✓ 3. 32
- ✗ 4. 24

Q.2 मिश्रित आवर्ती दशमलव $17.40\overline{73}$ को एक साधारण भिन्न में परिवर्तित कीजिए।

Ans
- ✗ 1. $\frac{172433}{9900}$
- ✗ 2. $\frac{172343}{9900}$
- ✓ 3. $\frac{172333}{9900}$
- ✗ 4. $\frac{172443}{9900}$

Q.3 एक रोबोटिक्स प्रयोगशाला तीन प्रकार की मशीनों के रखरखाव की जांच शेड्यूल करती है: एक प्रत्येक 14 दिन में, एक प्रत्येक 21 दिन में, और एक प्रत्येक 35 दिन में। यदि आज सभी मशीनों की जांच की जाती है, तो कितने दिनों के बाद उन्हें पहली बार पुन: एक साथ जांचा जाएगा?

Ans
- ✔ 1. 210
- ✘ 2. 490
- ✘ 3. 105
- ✘ 4. 98

Q.4 यदि ₹6900 को 20% वार्षिक चक्रवृद्धि ब्याज पर निवेश किया जाता है, और ब्याज अर्ध-वार्षिक रूप से संयोजित किया जाता है, तो 1 वर्ष बाद मिश्रधन कितना होगा?

Ans
- ✘ 1. ₹8149
- ✔ 2. ₹8349
- ✘ 3. ₹8449
- ✘ 4. ₹8249

Q.5 यदि $25^{(n-1)} + 100 = 5^{(2n-1)}$ है, तो 'n' का मान ज्ञात कीजिए।

Ans
- ✘ 1. 3
- ✘ 2. 4
- ✔ 3. 2
- ✘ 4. 1

Q.6 सेक्टर 7G से निष्कर्षित दुर्लभ धातुओं की कुल मात्रा 13,500 टन है। मिथ्रिल तथा एडमैंटियम की कुल मात्रा, विब्रानियम तथा कॉस्मियम की कुल मात्रा का कितना प्रतिशत है? (उत्तर को दशमलव के दो अंकों तक पूर्णांकित करें।)

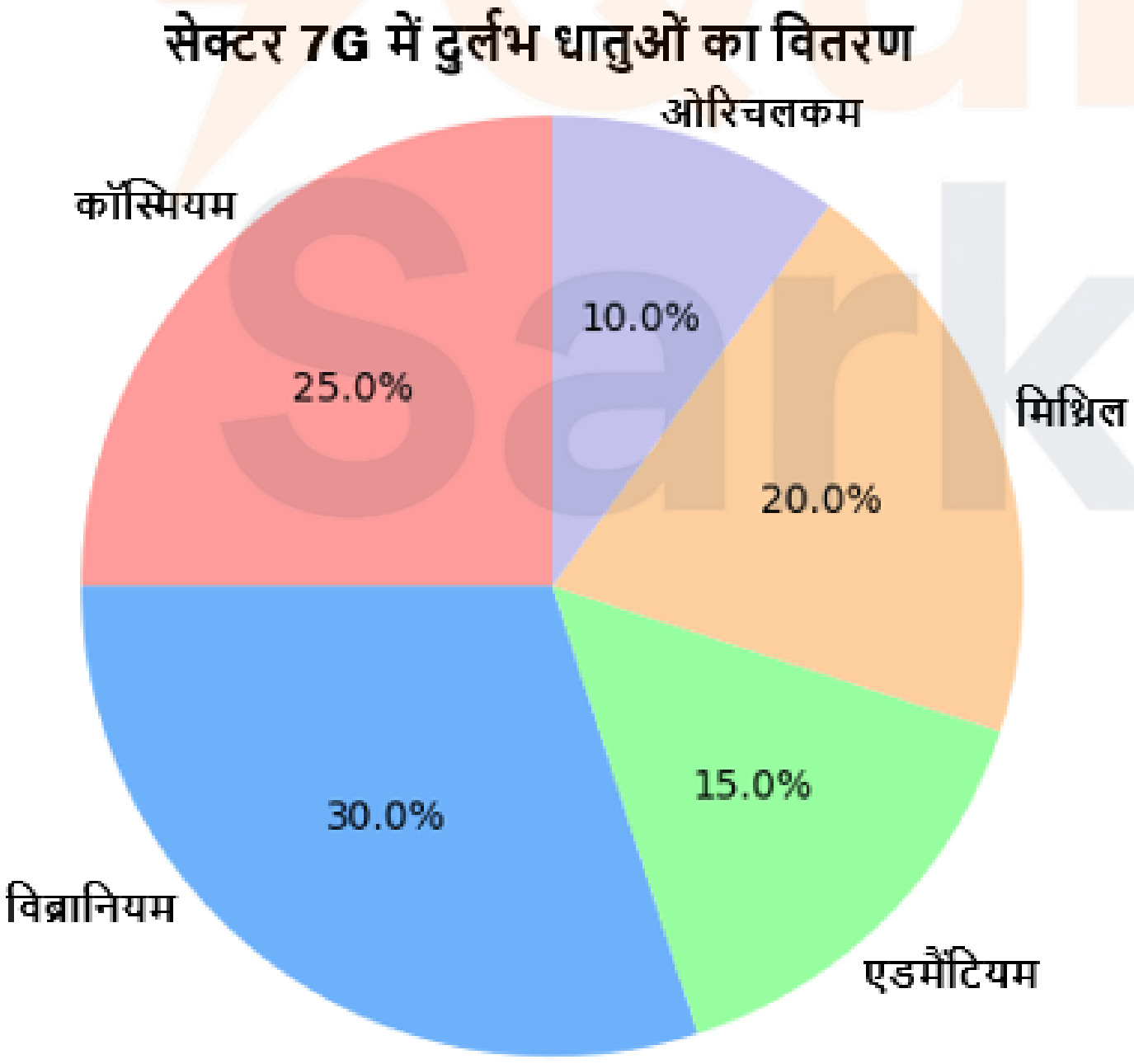

Ans
- ✘ 1. 77.78%
- ✘ 2. 66.67%
- ✘ 3. 71.12%
- ✔ 4. 63.64%

Q.7 एक चुनाव में 12,500 मत डाले गए, जिनमें से 4% मत अमान्य घोषित कर दिए गए। यदि वैध मतों का 60% प्रत्याशी P को मिला और शेष मत प्रत्याशी Q को मिले हों, तो प्रत्याशी P कितने मतों के अंतर से जीता?

Ans
- ✘ 1. 3,000
- ✔ 2. 2,400
- ✘ 3. 3,200
- ✘ 4. 1,800

Q.8 निम्न में से कौन-सी संख्या 6 से विभाज्य है?

Ans
1. 75
2. 57
3. 84 ✔
4. 93

Q.9 एक व्यक्ति 25% वार्षिक साधारण ब्याज की दर से 3 वर्षों के लिए ₹36,000 का ऋण लेता है। कुल देय मिश्रधन (मूलधन + 3 वर्ष का ब्याज) तीसरे वर्ष के अंत में चुकाना है। ऋण का भुगतान वर्ष 1, वर्ष 2 और वर्ष 3 के अंत में दी जाने वाली 3 बराबर वार्षिक किश्तों द्वारा किया जाता है। यह मानते हुए कि भुगतान की गई प्रत्येक किश्त में उसके भुगतान की तिथि से तीसरे वर्ष के अंत तक 25% वार्षिक साधारण ब्याज शामिल है, प्रत्येक किश्त का मान ज्ञात कीजिए।

Ans
1. ₹ 19,450
2. ₹ 16,450
3. ₹ 20,450
4. ₹ 16,800 ✔

Q.10 तीन संख्याएं 17 : 7 : 9 के अनुपात में हैं। यदि उनका लघुत्तम समापवर्त्य (LCM) 7497 है, तो उनका महत्तम समापवर्तक (HCF) ज्ञात कीजिए।

Ans
1. 7 ✔
2. 17
3. 21
4. 9

Q.11 नीचे दी गई तालिका विभिन्न कक्षाओं में परीक्षा में बैठने वाले और उत्तीर्ण होने वाले विद्यार्थियों की संख्या का बंटन दर्शाती है।

कक्षा	बैठने वाले	उत्तीर्ण
VII	260	250
VIII	340	320
IX	400	380
X	380	350
XI	350	320

यदि कक्षा XI में उत्तीर्ण प्रतिशत कम से कम 96% होना चाहिए, तो कितने और विद्यार्थियों को उत्तीर्ण होना चाहिए था?

Ans
1. 13
2. 16 ✔
3. 20
4. 15

Q.12 एक व्यक्ति कोई राशि अर्ध-वार्षिक रूप से संयोजित होने वाले 16% वार्षिक चक्रवृद्धि ब्याज की दर से 18 महीनों के लिए निवेश करता है और चक्रवृद्धि ब्याज के रूप में ₹25,971.20 अर्जित करता है। निवेश की गई राशि ज्ञात कीजिए।

Ans
1. ₹1,23,000
2. ₹1,15,000
3. ₹1,00,000 ✔
4. ₹85,000

Q.13 उम्मीदवारों X और Y के बीच हुए एक चुनाव में, 10% पंजीकृत मतदाताओं ने मतदान नहीं किया। मतदान करने वाले मतदाताओं में से, 4% के मत अवैध घोषित कर दिए गए। यदि उम्मीदवार Y को वैध मतों का 60% प्राप्त हुआ, जो कि 10,368 वैध मतों के बराबर था, तो पंजीकृत मतदाताओं की कुल संख्या ज्ञात कीजिए।

Ans
1. 20,000 ✔
2. 19,000
3. 21,000
4. 18,000

QuickSarkari.com | WhatsApp Channel | Telegram: t.me/quick_sarkari

Q.14 यदि किसी राशि को 20% वार्षिक साधारण ब्याज पर निवेश किया जाए, तो 4 वर्षों में वह ₹6720 हो जाती है। समान दर पर उसी राशि का 1 वर्ष का साधारण ब्याज (₹ में, दो दशमलव स्थानों तक पूर्णांकित) कितना होगा?

Ans

1. 373.335
2. 746.67
3. 1493.34
4. 2986.68

Q.15 नीचे दिया गया बार ग्राफ जुलाई महीने के दौरान छह परिवारों की विद्युत खपत (kWh में) को दर्शाता है।

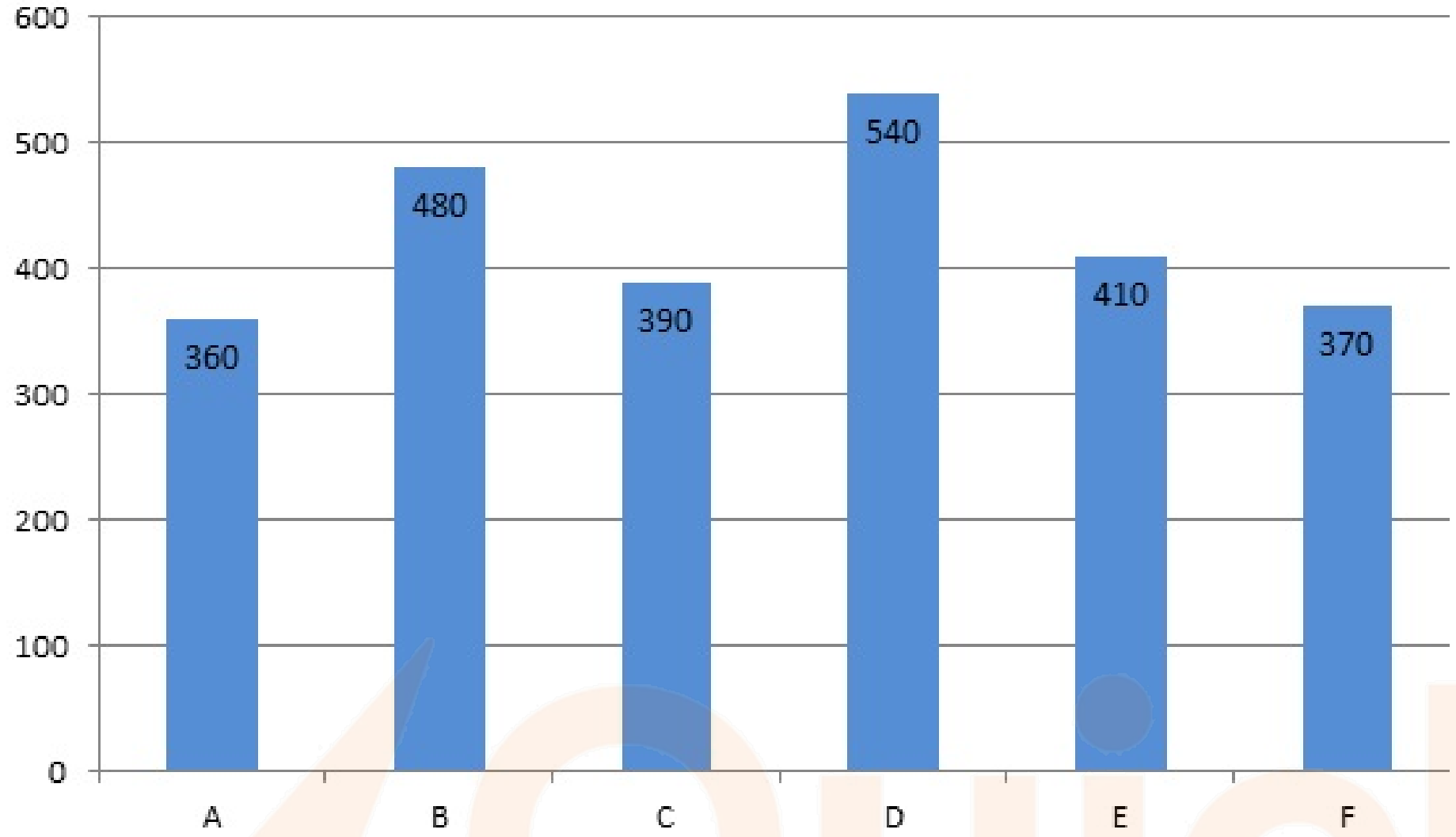

परिवार C की खपत, परिवार D की खपत से कितने प्रतिशत (दशमलव के दो स्थानों तक सही) कम है?

Ans

1. 25.34%
2. 23.18%
3. 22.58%
4. 27.78%

Quick Sarkari

Q.16 यदि ग्रहीय परिषद यह आदेश देती है कि 65% से कम दक्षता पर संचालित होने वाली किसी भी खदान को निष्कर्षित प्रति टन अयस्क पर 5 क्रेडिट का जुर्माना देना होगा, तो गैर-अनुपालन वाले ग्रहों (planets) से कुल कितना जुर्माना वसूला जाएगा?

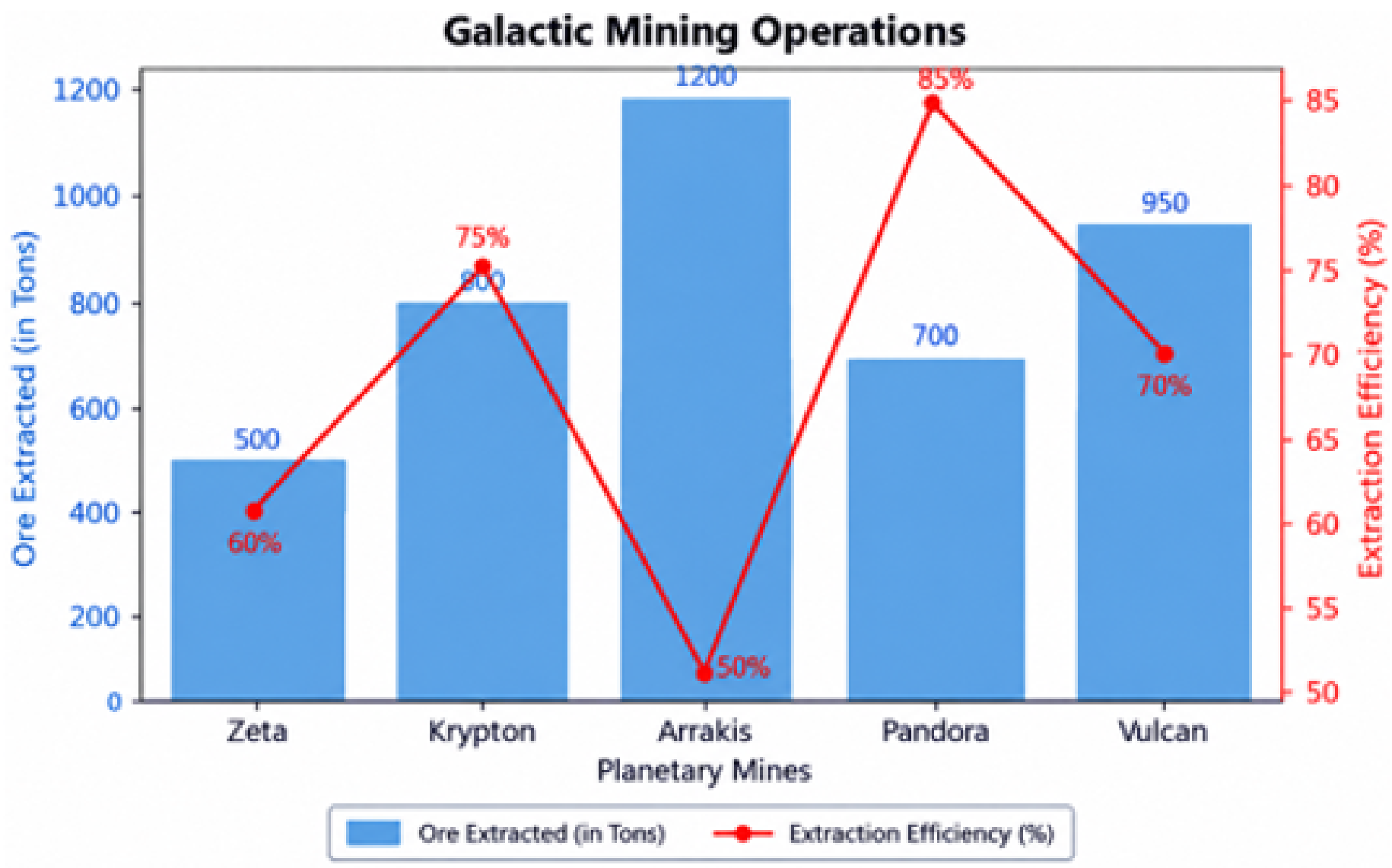

संदर्भ:
Galactic Mining Operations = गैलेक्टिक खदान प्रचालन
Ore Extracted (in Tons) = निष्कर्षित अयस्क (टन में)
Extraction Efficiency (%) = निष्कर्षण दक्षता (%)
Zeta = ज़ेटा, Krypton = क्रिप्टन, Arrakis = अराकिस, Pandora = पैंडोरा, Vulcan = वल्कन
Planetary Mines = ग्रहीय खदानें

Ans
✗ 1. 8,250 क्रेडिट
✓ 2. 8,500 क्रेडिट
✗ 3. 8,750 क्रेडिट
✗ 4. 8,000 क्रेडिट

Q.17 ₹25,000 की धनराशि को पाँच समान वार्षिक किश्तों में चुकाया जाना है, जिसमें पहली किश्त प्रथम वर्ष के अंत में देय है। ऋण पर वार्षिक रूप से संयोजित होने वाला 12% वार्षिक चक्रवृद्धि ब्याज लगता है। प्रत्येक किश्त की धनराशि ज्ञात कीजिए। (उत्तर को निकटतम रुपये तक पूर्णांकित कीजिए।)

Ans
✓ 1. ₹6,935
✗ 2. ₹6,548
✗ 3. ₹6,859
✗ 4. ₹7,356

Q.18 एक विद्यार्थी ने चार विषयों में 90, 85, 80 और 95 अंक प्राप्त किए। पाँचवें विषय में न्यूनतम कितने अंक आवश्यक हैं ताकि उसका औसत कम से कम 88 अंक हो जाए?

Ans
✓ 1. 90
✗ 2. 92
✗ 3. 85
✗ 4. 88

Q.19 एक बस स्टेशन से बसें प्रत्येक 14 मिनट, 21 मिनट और 35 मिनट के अंतराल पर प्रस्थान करती हैं। यदि वे सभी एक साथ 6:05 a.m. पर प्रस्थान करती हैं, तो वे बसें अगली बार एक साथ कब प्रस्थान करेंगी?

Ans
✓ 1. 9:35 a.m.
✗ 2. 10:05 a.m.
✗ 3. 9:05 a.m.
✗ 4. 8:35 a.m.

Q.20 14 विद्यार्थियों के एक समूह की औसत लंबाई 194 cm है। 191 cm और 190 cm लंबाई वाले दो और विद्यार्थी समूह में शामिल होते हैं तथा 115 cm औसत लंबाई वाले 5 विद्यार्थी समूह छोड़ देते हैं। इन परिवर्तनों के बाद समूह की नई औसत लंबाई (cm में, दशमलव के एक स्थान तक पूर्णांकित) कितनी है?

Ans
- ✗ 1. 234.3
- ✗ 2. 230.6
- ✓ 3. 229.3
- ✗ 4. 221.3

Section : **Arithmetical and Numerical Ability 2**

Q.1 एक पुस्तक विक्रेता किसी पुस्तक पर 12% और 20% की दो क्रमिक छूट देता है। इसके समतुल्य एकल प्रतिशत छूट ज्ञात कीजिए।

Ans
- ✗ 1. 28.4%
- ✓ 2. 29.6%
- ✗ 3. 30%
- ✗ 4. 32%

Q.2 दो शहर एक-दूसरे से 180 km दूर हैं। यदि कोई बस उनके बीच 45 km/h की नियत चाल से चलती है, तो उस दूरी को तय करने में न्यूनतम कितना समय लगेगा?

Ans
- ✗ 1. 5 घंटे
- ✗ 2. 3 घंटे
- ✗ 3. 6 घंटे
- ✓ 4. 4 घंटे

Q.3 एक घड़ी का अंकित मूल्य ₹7,200 है और इसे दो क्रमिक छूटों, पहली एक नकदी छूट और दूसरी एक स्कीम छूट, के बाद ₹5,510 में बेचा जाता है। यदि नकदी छूट 10% है, तो स्कीम छूट की दर ज्ञात कीजिए। (निकटतम पूर्णांक तक पूर्णांकित)

Ans
- ✓ 1. 15%
- ✗ 2. 20%
- ✗ 3. 12%
- ✗ 4. 18%

Q.4 एक वस्तु के मूल्य में पहले 30% की वृद्धि की जाती है और फिर 30% की कमी की जाती है। मूल्य में शुद्ध प्रतिशत परिवर्तन कितना है?

Ans
- ✗ 1. कोई परिवर्तन नहीं
- ✗ 2. 11% की वृद्धि
- ✗ 3. 10% की कमी
- ✓ 4. 9% की कमी

Q.5 दो रेलगाड़ियाँ विपरीत दिशाओं में गतिमान हैं और एक-दूसरे को 18 सेकंड में पार करती हैं। उनकी चाल का अनुपात 7 : 5 है तथा उनकी लंबाई का अनुपात 4 : 3 है। यदि छोटी रेलगाड़ी की लंबाई 180 मीटर है, तो धीमी चलने वाली रेलगाड़ी की चाल (km/h में) ज्ञात कीजिए।

Ans
- ✗ 1. 36
- ✗ 2. 27
- ✗ 3. 45
- ✓ 4. 35

Q.6 5 cm त्रिज्या का एक ठोस अर्धगोला, समान आधार त्रिज्या और 7 cm ऊंचाई वाले एक ठोस बेलन पर अध्यारोपित है। संयुक्त ठोस का संपूर्ण पृष्ठीय क्षेत्रफल कितना है?

Ans
- ✗ 1. $170\pi\ cm^2$
- ✗ 2. $270\pi\ cm^2$
- ✓ 3. $145\pi\ cm^2$
- ✗ 4. $130\pi\ cm^2$

QuickSarkari.com | WhatsApp Channel | Telegram: t.me/quick_sarkari

Q.7 20 और 5 का माध्यानुपाती ज्ञात कीजिए।

Ans
✗ 1. 15
✗ 2. 6
✗ 3. 8
✓ 4. 10

Q.8 एक पतंग के विकर्णों की लंबाई 18 cm और x cm है। यदि इसका क्षेत्रफल 126 sq cm है, तो x का मान ज्ञात कीजिए।

Ans
✗ 1. 9
✗ 2. 7
✓ 3. 14
✗ 4. 21

Q.9 एक परीक्षा में कल्पना और सुधा ने क्रमशः 486 और 504 अंक प्राप्त किए। यदि कल्पना ने 54% अंक प्राप्त किए, तो सुधा द्वारा प्राप्त अंकों का प्रतिशत कितना है?

Ans
✗ 1. 57%
✓ 2. 56%
✗ 3. 59%
✗ 4. 53%

Q.10 28 वस्तुओं का क्रय मूल्य x वस्तुओं के विक्रय मूल्य के समान है। यदि लाभ 40% है, तो x का मान ज्ञात कीजिए।

Ans
✗ 1. 25
✗ 2. 16
✗ 3. 24
✓ 4. 20

Q.11 एक कारखाने में 5 cm आधार त्रिज्या और 12 cm ऊंचाई वाले लंब वृत्तीय शंक्वाकार आइसक्रीम का उत्पादन किया जाता है। मध्य से 2 cm आधार त्रिज्या और 12 cm ऊंचाई वाला एक छोटा शंकु हटा दिया जाता है। शंक्वाकार छिद्र ड्रिल करने के बाद आइसक्रीम का शेष आयतन (cm^3 में) कितना होगा? (π = 22/7 का उपयोग करें)

Ans
✗ 1. 242
✗ 2. 286
✓ 3. 264
✗ 4. 220

Q.12 दो पाइप, A और B, एक टंकी को क्रमशः 12 घंटे और 18 घंटे में भर सकते हैं। यदि दोनों को एक साथ खोला जाए, लेकिन 6 घंटे बाद B को बंद कर दिया जाए, तो टंकी को पूरी तरह भरने में कुल कितना समय लगेगा?

Ans
✓ 1. 8 घंटे
✗ 2. 12 घंटे
✗ 3. 10 घंटे
✗ 4. 7 घंटे

Q.13 एक ठेकेदार को पता चलता है कि किसी परियोजना को पूरा करने में लगने वाला समय, नियोजित श्रमिकों की संख्या के व्युत्क्रमानुपाती है। यदि 6 श्रमिक 10 दिनों में कार्य पूरा कर सकते हैं, तो उसी कार्य को पूरा करने में 15 श्रमिकों को कितने दिन लगेंगे?

Ans
✗ 1. 5 दिन
✓ 2. 4 दिन
✗ 3. 6 दिन
✗ 4. 2 दिन

Q.14 एक रेलगाड़ी अपनी यात्रा की 20% दूरी 50 km/h की चाल से, 30% दूरी 60 km/h की चाल से और शेष 50% दूरी 100 km/h की चाल से तय करती है। यदि यात्रा की कुल दूरी 1,000 km है, तो संपूर्ण यात्रा के लिए रेलगाड़ी की औसत चाल कितनी है? (उत्तर को दो दशमलव स्थानों तक पूर्णांकित करें।)

Ans
- ✗ 1. 63.33 km/h
- ✗ 2. 80.52 km/h
- ✗ 3. 65.05 km/h
- ✓ 4. 71.43 km/h

Q.15 एक कंप्यूटर का अंकित मूल्य ₹24,000 है। एक ग्राहक को 10% और 5% की दो क्रमिक छूट मिलती है। ग्राहक को प्राप्त हुई नेट छूट राशि (₹ में) कितनी है?

Ans
- ✗ 1. 3,640
- ✗ 2. 3,520
- ✗ 3. 3,400
- ✓ 4. 3,480

Q.16 एक अंतरराष्ट्रीय सम्मेलन के दौरान, तीन शोधकर्ताओं—हरिनी, सोता और मिगुएल—को एक कार्यशाला के लिए डेटा पैकेटों के समन्वायोजन का कार्य सौंपा गया है। एक साथ काम करते हुए, लेकिन एक आवर्ती कार्यसूची (rotating schedule) में जहां प्रत्येक दिन केवल दो लोग कार्य करते हैं, हरिनी और सोता 4 दिनों में कार्य पूरा करते हैं, सोता और मिगुएल 6 दिनों में कार्य पूरा करते हैं, और हरिनी और मिगुएल 12 दिनों में कार्य पूरा करते हैं। व्यक्तिगत दरों को स्थिर मानते हुए, तीनों शोधकर्ताओं को एक साथ एक ही समय में कार्य करते हुए उसे पूरा करने में कितने दिन लगेंगे?

Ans
- ✗ 1. 6 दिन
- ✗ 2. 5 दिन
- ✗ 3. 7 दिन
- ✓ 4. 4 दिन

Q.17 एक गोदाम विश्लेषण डैशबोर्ड निम्नलिखित उत्पादकता डेटा प्रदर्शित करता है। उत्पादकता को प्रति पैकिंग स्टेशन संसाधित ऑर्डर की संख्या के रूप में परिभाषित किया गया है। डैशबोर्ड में उल्लेख है कि पूरे दिन प्रति स्टेशन उत्पादकता अपरिवर्तित रही। डैशबोर्ड की रिक्त प्रविष्टि निर्धारित करें।

शिफ्ट	पैकिंग स्टेशन	संसाधित ऑर्डर
प्रातःकाल	48	7200
सायंकाल	62	?

Ans
- ✓ 1. 9,300
- ✗ 2. 9,200
- ✗ 3. 9,500
- ✗ 4. 9,400

Q.18 किसी वस्तु को 25% के लाभ पर बेचा जाता है। यदि विक्रय मूल्य में 12% की कमी की जाती है, तो नया लाभ प्रतिशत कितना है?

Ans
- ✓ 1. 10%
- ✗ 2. 9%
- ✗ 3. 13%
- ✗ 4. 15%

Q.19 एक निर्माता किसी उपकरण को एक थोक विक्रेता को 8% लाभ पर बेचता है। वह थोक विक्रेता उसे एक खुदरा विक्रेता को 22% लाभ पर बेचता है। फिर वह खुदरा विक्रेता उसे एक ग्राहक को ₹11,468 में बेचकर 18% का लाभ कमाता है। उपकरण की मूल विनिर्माण लागत (निकटतम ₹ में पूर्णांकित) ज्ञात कीजिए।

Ans
- ✓ 1. ₹7,376
- ✗ 2. ₹7,134
- ✗ 3. ₹7,924
- ✗ 4. ₹7,546

Q.20 यदि (x + 8):(y – 4) = 5:7 और (x – 4):(y + 6) = 3:5 है, तो x:y का मान ज्ञात कीजिए।

Ans
1. 13:18
2. 19:22
3. 11:17 ✔
4. 7:10

Section : **Hindi Language and Comprehension**

Q.1 "इसे कहो या कुएँ में डालो" लोकोक्ति का सही अर्थ क्या है?

Ans
1. कुएँ से पानी निकालकर खेतों की सिंचाई करना
2. पुरानी वस्तुओं को संभालकर रखना
3. गुप्त बातों को दूसरों के सामने प्रकट करना
4. जो व्यक्ति किसी की बात पर ध्यान नहीं देता ✔

Q.2 निम्नलिखित में से वर्तनी के आधार पर शुद्ध वाक्य का चयन कीजिए:

Ans
1. ग्रामीण क्षेत्र में उड़नतस्तरी देखे जाने की अफवाह फैल गई।
2. ग्रामीण क्षेत्र में उडनतश्तरी देखे जाने की अफवाह फैल गई।
3. ग्रामीण क्षेत्र में उड़नतशतरी देखे जाने की अफवाह फैल गई।
4. ग्रामीण क्षेत्र में उड़नतश्तरी देखे जाने की अफवाह फैल गई। ✔

Q.3 'विष्णु का चक्र' वाक्यांश के लिए सार्थक शब्द है-

Ans
1. कपर्द
2. कौस्तुभ
3. नंदक
4. सुदर्शन ✔

Q.4 निम्नलिखित वाक्य-खंडों का क्रम सही कीजिए।
अ. गोस्वामी तुलसीदास हिंदी
ब. भक्त कवि और
स. रामचरितमानस के रचयिता थे
द. साहित्य के महान

Ans
1. स, अ, ब, द
2. अ, द, ब, स ✔
3. ब, अ, स, द
4. अ, ब, स, द

Q.5 समाचार पत्र में छपे महत्वपूर्ण विचारों का संक्षिप्त संग्रह प्रस्तुत करना हो, तो उसके लिए उपयुक्त एक-शब्द क्या होगा?

Ans
1. रिपोर्ट
2. आलेख
3. पत्रिका
4. सम्पादकीय ✔

Q.6 निम्नलिखित वाक्य के रिक्त स्थान को भरने के लिए उपयुक्त परसर्ग का चयन करें:
धर्म के नाम पर होने वाले संघर्षों की नींव भारत में अंग्रेजों ------------------डाली थी।

Ans
1. ने ✔
2. के द्वारा
3. से
4. पर

QuickSarkari.com | WhatsApp Channel | Telegram: t.me/quick_sarkari

Q.7 लोकोक्ति का सही अर्थ क्या होगा?
आँख से देखकर मक्खी नहीं निगली जाती

Ans
✗ 1. जानबूझकर अपनी गलती से मुकर जाना
✓ 2. हानिकारक काम जान-बूझकर नहीं किया जाता
✗ 3. खान-पान में स्वच्छता रखना
✗ 4. जानलेवा संकट से खुद को बचाना

Q.8 दिए गए वाक्य में रिक्त स्थान के लिए उपयुक्त क्रिया चुनें।
अब हमारा सारा काम समाप्त .... को है।

Ans
✓ 1. होने
✗ 2. रहने
✗ 3. चलने
✗ 4. करने

Q.9 निम्नलिखित वाक्यांश के लिए सार्थक शब्द लिखें।
' आत्मा और परमात्मा का द्वैत अलग-अलग न मानने वाला'

Ans
✓ 1. अद्वैतवादी
✗ 2. विशिष्टाद्वैतवादी
✗ 3. द्वैतवादी
✗ 4. शुद्धाद्वैतवादी

Q.10 निम्नलिखित अव्यवस्थित क्रम वाले वाक्यों को क,ख,ग,घ की संज्ञा दी गई है इन्हें ध्यान से पढ़कर,दिए गए विकल्पों में से उचित वाक्य क्रम वाला विकल्प चुनिए, जिससे सही अनुच्छेद का निर्माण हो –

क -इसका उद्देश्य गुणवत्तापूर्ण शिक्षा प्रदान करना और अनुसंधान के लिए उपयुक्त वातावरण तैयार करना है।
ख - शिक्षा में सुधार और अनुसंधान को बढ़ावा देने के लिए, नई शिक्षा नीति (NEP) 2020 लागू की गई है।
ग -साथ ही शिक्षकों की गुणवत्ता पर ध्यान दिया जा रहा है।
घ – इसे प्राप्त करने के लिए, शिक्षा प्रणाली में संरचनात्मक बदलाव किया जा रहा है ।

Ans
✗ 1. ग क ख घ
✓ 2. ख क घ ग
✗ 3. घ ग ख क
✗ 4. क ग ख घ

Q.11 'मुँह में दाँत न होना' मुहावरे का सही अर्थ है –

Ans
✗ 1. लज्जित होना
✓ 2. सामर्थ्य न होना
✗ 3. व्यक्त न करना
✗ 4. मुसीबत में छोड़ना

Q.12 निम्नलिखित लोकोक्ति के सही अर्थ को चुनें-
देह डोरा पेट बोरा

Ans
✗ 1. हमेशा जागरूक रहना
✗ 2. पतला शरीर स्वास्थ्यवर्धक होता है
✗ 3. पतला व्यक्ति कम खाता है
✓ 4. दुबले व्यक्ति द्वारा अधिक खाया जाना

Q.13 उपयुक्त 'कारक' चिह्न का चयन कर दिए गए वाक्य को पूर्ण कीजिए।
सास ने बहू..................जी भर कोसा ।'

Ans
✗ 1. पे
✗ 2. से
✗ 3. ने
✓ 4. को

QuickSarkari.com | WhatsApp Channel | Telegram: t.me/quick_sarkari

Q.14 निम्नांकित विकल्पों में से उचित विशेषण का चयन करके वाक्य पूर्ण करें-
भारत विभाजन की............ने लाखों परिवारों को उजाड़ दिया था।

Ans
- ✗ 1. नौटंकी
- ✗ 2. व्यवस्था
- ✓ 3. त्रासदी
- ✗ 4. कौमुदी

Q.15 रिक्त स्थान में 'पूर्वकालिक क्रिया' के प्रयोग से वाक्य पूर्ण कीजिए-
कक्षा में अध्यापक के आने की सूचना _______ सभी विद्यार्थी अपनी-अपनी कुर्सियों पर शांति से बैठ गए।

Ans
- ✗ 1. सुनता
- ✗ 2. सुनाया
- ✗ 3. सुनना
- ✓ 4. सुनकर

Q.16 शुद्ध वर्तनी वाले वाक्य का चयन करें-

Ans
- ✗ 1. राहुल मिर्श एक ईमानदार इन्सान हैं
- ✗ 2. राहुल मीश्र एक ईमानदार इन्सान हैं
- ✓ 3. राहुल मिश्रा एक ईमानदार इन्सान हैं
- ✗ 4. राहुल मीश्रा एक ईमानदार इन्सान हैं

Q.17 सर्वोचित कारक चिह्न से दिए गए वाक्य का रिक्त स्थान पूर्ण करें—
सिंधु घाटी सभ्यता .... बारे में इतिहासकारों ने साक्ष्यों के आधार पर ही निष्कर्ष निकाला।

Ans
- ✗ 1. को
- ✗ 2. से
- ✓ 3. के
- ✗ 4. में

Q.18 'मर्यादा का वश में होना' किस मुहावरे के अर्थ को दर्शा रहा है?

Ans
- ✓ 1. अपनी इज्जत अपने हाथ होना
- ✗ 2. मुँह की खाना
- ✗ 3. नाक में दम करना
- ✗ 4. नाक कटना

Q.19 'जिसे भय नहीं है' वाक्यांश के लिए सार्थक शब्द होगा -

Ans
- ✓ 1. निर्भय
- ✗ 2. नि:शंक
- ✗ 3. निष्पाप
- ✗ 4. निर्णय

Q.20 दिए गए शब्दों के सही अनुक्रम से बने वाक्य का चयन कीजिए-
'अभंग एक छंद है मराठी '

Ans
- ✓ 1. अभंग एक मराठी छंद है
- ✗ 2. है एक अभंग छंद मराठी
- ✗ 3. मराठी अभंग एक है छंद
- ✗ 4. छंद अभंग मराठी एक है

Section : **Hindi Language and Comprehension 2**

Quick Sarkari

Q.1 निम्नलिखित में से किस वाक्य में 'उदार' के सही विलोम शब्द का प्रयोग हुआ है?

Ans
- ✗ 1. दूसरों पर दया करने वाला व्यक्ति बहुत कृपालु माना जाता है।
- ✓ 2. उसका संकुचित और अनुदार दृष्टिकोण समाज के लिए अच्छा नहीं है।
- ✗ 3. वह हमेशा बड़ों से बहुत विनीत स्वर में बातचीत करता है।
- ✗ 4. वह बहुत बड़ा दानी राजा था जो सबको स्वर्ण मुद्राएँ देता था।

Q.2 'अरघट्ट' का तद्भव शब्द होगा -

Ans
- ✗ 1. अरगनी
- ✗ 2. अगहन
- ✗ 3. अरहर
- ✓ 4. रहट

Q.3 निम्नलिखित वाक्यों में किसमें देशज शब्द का सही प्रयोग हुआ है?

Ans
- ✗ 1. शेर जंगल में जोर-जोर से मिमियाने लगा।
- ✗ 2. गाय अपने बछड़े को देखकर मिमियाने लगी।
- ✗ 3. चिड़िया सुबह मधुर स्वर में मिमियाने लगी।
- ✓ 4. बकरी अपने बच्चे को देखकर मिमियाने लगी।

Q.4 देशज शब्द 'कोयला' का अशुद्ध प्रयोग किस विकल्प में हुआ है?

Ans
- ✗ 1. कोयला ईंधन के रूप में प्रयुक्त होता है।
- ✗ 2. कोयले की खान प्रसिद्ध है।
- ✗ 3. कोयले से ताप प्राप्त किया जाता है।
- ✓ 4. कोयला विद्यालय में अध्यापन कर रहा है।

Q.5 निम्नलिखित में से कौन-सा शब्द तद्भव है?

Ans
- ✗ 1. पटल
- ✗ 2. पक्ष
- ✓ 3. प्यास
- ✗ 4. परिधान

Q.6 रेखांकित शब्द में त्रुटि है , उसे पहचान कर शुद्ध करें
न्यायालय में प्रस्तुत किए गए सभी प्रमाण <u>प्रमाणिक</u> होने चाहिए।

Ans
- ✓ 1. प्रामाणिक
- ✗ 2. प्रामाणीक
- ✗ 3. प्रमाणीक
- ✗ 4. प्रामणिक

Q.7 निम्नलिखित में से किस वाक्य में 'उत्कर्ष' के सही विलोम शब्द का प्रयोग हुआ है?

Ans
- ✗ 1. नए उद्योगों के आने से राज्य का आर्थिक विकास तेज़ी से हो रहा है।
- ✗ 2. इस वर्ष खेल प्रतियोगिता में उसने एक बड़ी उपलब्धि हासिल की।
- ✗ 3. जीवन में निरंतर मेहनत करने से मनुष्य को उन्नति प्राप्त होती है।
- ✓ 4. गलत संगति और नशीले पदार्थों के सेवन से जीवन का अपकर्ष होता है।

Q.8 निम्नलिखित में से विदेशज शब्द 'हवालात' के सही प्रयोग वाला वाक्य चुनिए-

Ans
- ✗ 1. आरोपी को हावालात में रखा गया।
- ✗ 2. आरोपी को हवालाथ में रखा गया।
- ✗ 3. आरोपी को हवालत में रखा गया।
- ✓ 4. आरोपी को हवालात में रखा गया।

Quick Sarkari

Q.9 निम्नलिखित में से वर्तनी के आधार पर शुद्ध वाक्य का चयन कीजिए:

Ans
- ✗ 1. इस मामले की जाच के लिए एक उच्च-स्तरीय समिति बनी है।
- ✗ 2. इस मामले की जांच के लिए एक उच्च-स्तरीय समित बनी है।
- ✓ 3. इस मामले की जाँच के लिए एक उच्चस्तरीय समिति बनी है।
- ✗ 4. इस मामले की जाँच के लिए एक उच्चस्तरिय समिति बनी है।

Q.10 'हेठी' का तत्सम शब्द होगा -

Ans
- ✗ 1. हरीतकी
- ✗ 2. लघुक
- ✗ 3. समपर्य
- ✓ 4. अध:स्थिति

Q.11 कविता में यौवन के सुख-दुख को बड़ी खूबसूरती से व्यक्त किया गया है।
वाक्य में प्रयुक्त यौवन शब्द का विलोम क्या है।

Ans
- ✗ 1. परिपक्वता
- ✗ 2. प्रजनन
- ✗ 3. युवावस्था
- ✓ 4. वार्धक्य

Q.12 निम्नलिखित में से किस वाक्य में 'ऊसर' के सही विलोम शब्द का प्रयोग हुआ है?

Ans
- ✗ 1. नदी के किनारे का समतल मैदान दौड़ने के लिए बहुत अच्छा है।
- ✗ 2. रेगिस्तान की गर्मी में कठोर रास्तों पर चलना बहुत मुश्किल है।
- ✗ 3. भारत का नक्शा बहुत विस्तृत और विविधता से भरा हुआ है।
- ✓ 4. गंगा के मैदानों की मिट्टी बहुत ही उपजाऊ और खेती योग्य है।

Q.13 दिए गए वाक्य में रेखांकित शब्द का विलोम शब्द क्या होगा?
दीपक की लौ से कमरे में बहुत विकीर्ण प्रकाश फैल रहा है।

Ans
- ✓ 1. आकीर्ण
- ✗ 2. विकर्षण
- ✗ 3. सामूहिक
- ✗ 4. प्रकीर्ण

Q.14 एक विश्वविद्यालय की बहस में एक पक्ष ने 'सहयोग' का समर्थन किया, जबकि दूसरे पक्ष ने उसके विपरीत शब्द का समर्थन किया। यदि आपको 'सहयोग' शब्द का विलोम चुनना हो, तो निम्नलिखित में से कौन-सा विकल्प सबसे उपयुक्त है?

Ans
- ✗ 1. सम्मति
- ✗ 2. अनुकूलता
- ✓ 3. असहयोग
- ✗ 4. संवर्धन

Q.15 नीचे दिए गए वाक्य के किस भाग में त्रुटि है ?
'इसी महिने हमारी परीक्षा होगी।'

Ans
- ✗ 1. हमारी
- ✓ 2. महिने
- ✗ 3. इसी
- ✗ 4. परीक्षा

Comprehension:

गद्यांश को ध्यानपूर्वक पढ़िए तथा उससे संबंधित प्रश्नों के उत्तर दीजिए-
देश-प्रेम है क्या ? प्रेम ही तो है। इस प्रेम का आलंबन क्या है ? सारा देश अर्थात् मनुष्य, पशु, पक्षी, नदी, नाले, वन, पर्वत सहित सारी भूमि। वह प्रेम किस प्रकार का है ? यह साहचर्यगत प्रेम है। जिनके बीच हम रहते हैं, जिन्हें बराबर आँखों से देखते हैं, जिनकी बातें बराबर सुनते रहते हैं, जिनका हमारा हर घड़ी का साथ रहता है। सारांश यह है कि जिनके सान्निध्य का हमें अभ्यास पड़ जाता है, उनके प्रति लोभ या राग हो सकता है। देश-प्रेम यदि वास्तव में यह अंतःकरण का कोई भाव है तो यही हो सकता है। यदि यह नहीं है तो वह कोरी बकवास या किसी और भाव के संकेत के लिए गढ़ा हुआ शब्द है।यदि किसी को अपने देश से सचमुच प्रेम है तो उसे अपने देश के मनुष्य, पशु, पक्षी, लता, गुल्म, पेड़, पत्ते, वन, पर्वत, नदी, निर्झर आदि सबसे प्रेम होगा, वह सबको चाहभरी दृष्टि से देखेगा, वह सबकी सुध करके विदेश में आँसू बहाएगा जो यह भी आँख भर नहीं देखते कि आम प्रणय-सौरभपूर्ण मंजरियों से कैसे लदे हुए हैं, जो यह भी नहीं झाँकते कि किसानों के झोंपड़ों के भीतर क्या हो रहा है, वे यदि दस बने-ठने मित्रों के बीच प्रत्येक भारतवासी की औसत आमदनी का पता बताकर देश-प्रेम का दावा करें तो उनसे पूछना चाहिए कि भाइयो! बिना रूप-परिचय का यह प्रेम कैसा ? उनसे कोसों दूर बैठे-बैठे, पड़े-पड़े या खड़े-खड़े तुम विलायती बोली में "अर्थशास्त्र की दुहाई दिया करो, पर प्रेम का नाम उसके साथ न घसीटो।" प्रेम हिसाब-किताब नहीं है। हिसाब-किताब करने वाले भाड़े पर भी मिल सकते हैं, पर प्रेम करने वाले नहीं।

SubQuestion No : 16

Q.16 सच्चा देश-प्रेम किससे प्रगट होता है?

Ans
- ✗ 1. धर्मराज से
- ✗ 2. तेजस्वी लोगों से
- ✗ 3. शांति से
- ✓ 4. प्रकृति के प्रति प्रेम से

Comprehension:

गद्यांश को ध्यानपूर्वक पढ़िए तथा उससे संबंधित प्रश्नों के उत्तर दीजिए-
देश-प्रेम है क्या ? प्रेम ही तो है। इस प्रेम का आलंबन क्या है ? सारा देश अर्थात् मनुष्य, पशु, पक्षी, नदी, नाले, वन, पर्वत सहित सारी भूमि। वह प्रेम किस प्रकार का है ? यह साहचर्यगत प्रेम है। जिनके बीच हम रहते हैं, जिन्हें बराबर आँखों से देखते हैं, जिनकी बातें बराबर सुनते रहते हैं, जिनका हमारा हर घड़ी का साथ रहता है। सारांश यह है कि जिनके सान्निध्य का हमें अभ्यास पड़ जाता है, उनके प्रति लोभ या राग हो सकता है। देश-प्रेम यदि वास्तव में यह अंतःकरण का कोई भाव है तो यही हो सकता है। यदि यह नहीं है तो वह कोरी बकवास या किसी और भाव के संकेत के लिए गढ़ा हुआ शब्द है।यदि किसी को अपने देश से सचमुच प्रेम है तो उसे अपने देश के मनुष्य, पशु, पक्षी, लता, गुल्म, पेड़, पत्ते, वन, पर्वत, नदी, निर्झर आदि सबसे प्रेम होगा, वह सबको चाहभरी दृष्टि से देखेगा, वह सबकी सुध करके विदेश में आँसू बहाएगा जो यह भी आँख भर नहीं देखते कि आम प्रणय-सौरभपूर्ण मंजरियों से कैसे लदे हुए हैं, जो यह भी नहीं झाँकते कि किसानों के झोंपड़ों के भीतर क्या हो रहा है, वे यदि दस बने-ठने मित्रों के बीच प्रत्येक भारतवासी की औसत आमदनी का पता बताकर देश-प्रेम का दावा करें तो उनसे पूछना चाहिए कि भाइयो! बिना रूप-परिचय का यह प्रेम कैसा ? उनसे कोसों दूर बैठे-बैठे, पड़े-पड़े या खड़े-खड़े तुम विलायती बोली में "अर्थशास्त्र की दुहाई दिया करो, पर प्रेम का नाम उसके साथ न घसीटो।" प्रेम हिसाब-किताब नहीं है। हिसाब-किताब करने वाले भाड़े पर भी मिल सकते हैं, पर प्रेम करने वाले नहीं।

SubQuestion No : 17

Q.17 उपर्युक्त गद्यांश का उचित शीर्षक क्या है?

Ans
- ✗ 1. लोकतंत्र
- ✗ 2. होम्योपैथी
- ✗ 3. व्यापार
- ✓ 4. देश-प्रेम

Comprehension:

गद्यांश को ध्यानपूर्वक पढ़िए तथा उससे संबंधित प्रश्नों के उत्तर दीजिए-
देश-प्रेम है क्या ? प्रेम ही तो है। इस प्रेम का आलंबन क्या है ? सारा देश अर्थात् मनुष्य, पशु, पक्षी, नदी, नाले, वन, पर्वत सहित सारी भूमि। वह प्रेम किस प्रकार का है ? यह साहचर्यगत प्रेम है। जिनके बीच हम रहते हैं, जिन्हें बराबर आँखों से देखते हैं, जिनकी बातें बराबर सुनते रहते हैं, जिनका हमारा हर घड़ी का साथ रहता है। सारांश यह है कि जिनके सान्निध्य का हमें अभ्यास पड़ जाता है, उनके प्रति लोभ या राग हो सकता है। देश-प्रेम यदि वास्तव में यह अंतःकरण का कोई भाव है तो यही हो सकता है। यदि यह नहीं है तो वह कोरी बकवास या किसी और भाव के संकेत के लिए गढ़ा हुआ शब्द है।यदि किसी को अपने देश से सचमुच प्रेम है तो उसे अपने देश के मनुष्य, पशु, पक्षी, लता, गुल्म, पेड़, पत्ते, वन, पर्वत, नदी, निर्झर आदि सबसे प्रेम होगा, वह सबको चाहभरी दृष्टि से देखेगा, वह सबकी सुध करके विदेश में आँसू बहाएगा जो यह भी आँख भर नहीं देखते कि आम प्रणय-सौरभपूर्ण मंजरियों से कैसे लदे हुए हैं, जो यह भी नहीं झाँकते कि किसानों के झोंपड़ों के भीतर क्या हो रहा है, वे यदि दस बने-ठने मित्रों के बीच प्रत्येक भारतवासी की औसत आमदनी का पता बताकर देश-प्रेम का दावा करें तो उनसे पूछना चाहिए कि भाइयो! बिना रूप-परिचय का यह प्रेम कैसा ? उनसे कोसों दूर बैठे-बैठे, पड़े-पड़े या खड़े-खड़े तुम विलायती बोली में "अर्थशास्त्र की दुहाई दिया करो, पर प्रेम का नाम उसके साथ न घसीटो।" प्रेम हिसाब-किताब नहीं है। हिसाब-किताब करने वाले भाड़े पर भी मिल सकते हैं, पर प्रेम करने वाले नहीं।

SubQuestion No : 18

Q.18 "प्रेम हिसाब-किताब नहीं है।" का अर्थ है-

Ans
- ✗ 1. प्रेम में आलम्बन नहीं होता।
- ✓ 2. प्रेम में लाभ-हानि नहीं देखी जाती।
- ✗ 3. प्रेम व्यापार है।
- ✗ 4. प्रेम हास्यपद होता है।

QuickSarkari.com | WhatsApp Channel | Telegram: t.me/quick_sarkari

Comprehension:

गद्यांश को ध्यानपूर्वक पढ़िए तथा उससे संबंधित प्रश्नों के उत्तर दीजिए-
देश-प्रेम है क्या ? प्रेम ही तो है। इस प्रेम का आलंबन क्या है ? सारा देश अर्थात् मनुष्य, पशु, पक्षी, नदी, नाले, वन, पर्वत सहित सारी भूमि। वह प्रेम किस प्रकार का है ? यह साहचर्यगत प्रेम है। जिनके बीच हम रहते हैं, जिन्हें बराबर आँखों से देखते हैं, जिनकी बातें बराबर सुनते रहते हैं, जिनका हमारा हर घड़ी का साथ रहता है। सारांश यह है कि जिनके सान्निध्य का हमें अभ्यास पड़ जाता है, उनके प्रति लोभ या राग हो सकता है। देश-प्रेम यदि वास्तव में यह अंतःकरण का कोई भाव है तो यही हो सकता है। यदि यह नहीं है तो वह कोरी बकवास या किसी और भाव के संकेत के लिए गढ़ा हुआ शब्द है।यदि किसी को अपने देश से सचमुच प्रेम है तो उसे अपने देश के मनुष्य, पशु, पक्षी, लता, गुल्म, पेड़, पत्ते, वन, पर्वत, नदी, निर्झर आदि सबसे प्रेम होगा, वह सबको चाहभरी दृष्टि से देखेगा, वह सबकी सुध करके विदेश में आँसू बहाएगा जो यह भी आँख भर नहीं देखते कि आम प्रणय-सौरभपूर्ण मंजरियों से कैसे लदे हुए हैं, जो यह भी नहीं झाँकते कि किसानों के झोंपड़ों के भीतर क्या हो रहा है, वे यदि दस बने-ठने मित्रों के बीच प्रत्येक भारतवासी की औसत आमदनी का पता बताकर देश-प्रेम का दावा करें तो उनसे पूछना चाहिए कि भाइयो! बिना रूप-परिचय का यह प्रेम कैसा ? उनसे कोसों दूर बैठे-बैठे, पड़े-पड़े या खड़े-खड़े तुम विलायती बोली में "अर्थशास्त्र की दुहाई दिया करो, पर प्रेम का नाम उसके साथ न घसीटो।" प्रेम हिसाब-किताब नहीं है। हिसाब-किताब करने वाले भाड़े पर भी मिल सकते हैं, पर प्रेम करने वाले नहीं।

SubQuestion No : 19

Q.19 **'संकेत' का क्या अर्थ है?**

Ans
- ✗ 1. हिचक
- ✓ 2. इशारा
- ✗ 3. शंका
- ✗ 4. तंग

Comprehension:

गद्यांश को ध्यानपूर्वक पढ़िए तथा उससे संबंधित प्रश्नों के उत्तर दीजिए-
देश-प्रेम है क्या ? प्रेम ही तो है। इस प्रेम का आलंबन क्या है ? सारा देश अर्थात् मनुष्य, पशु, पक्षी, नदी, नाले, वन, पर्वत सहित सारी भूमि। वह प्रेम किस प्रकार का है ? यह साहचर्यगत प्रेम है। जिनके बीच हम रहते हैं, जिन्हें बराबर आँखों से देखते हैं, जिनकी बातें बराबर सुनते रहते हैं, जिनका हमारा हर घड़ी का साथ रहता है। सारांश यह है कि जिनके सान्निध्य का हमें अभ्यास पड़ जाता है, उनके प्रति लोभ या राग हो सकता है। देश-प्रेम यदि वास्तव में यह अंतःकरण का कोई भाव है तो यही हो सकता है। यदि यह नहीं है तो वह कोरी बकवास या किसी और भाव के संकेत के लिए गढ़ा हुआ शब्द है।यदि किसी को अपने देश से सचमुच प्रेम है तो उसे अपने देश के मनुष्य, पशु, पक्षी, लता, गुल्म, पेड़, पत्ते, वन, पर्वत, नदी, निर्झर आदि सबसे प्रेम होगा, वह सबको चाहभरी दृष्टि से देखेगा, वह सबकी सुध करके विदेश में आँसू बहाएगा जो यह भी आँख भर नहीं देखते कि आम प्रणय-सौरभपूर्ण मंजरियों से कैसे लदे हुए हैं, जो यह भी नहीं झाँकते कि किसानों के झोंपड़ों के भीतर क्या हो रहा है, वे यदि दस बने-ठने मित्रों के बीच प्रत्येक भारतवासी की औसत आमदनी का पता बताकर देश-प्रेम का दावा करें तो उनसे पूछना चाहिए कि भाइयो! बिना रूप-परिचय का यह प्रेम कैसा ? उनसे कोसों दूर बैठे-बैठे, पड़े-पड़े या खड़े-खड़े तुम विलायती बोली में "अर्थशास्त्र की दुहाई दिया करो, पर प्रेम का नाम उसके साथ न घसीटो।" प्रेम हिसाब-किताब नहीं है। हिसाब-किताब करने वाले भाड़े पर भी मिल सकते हैं, पर प्रेम करने वाले नहीं।

SubQuestion No : 20

Q.20 **'आमदनी' का विलोम शब्द है-**

Ans
- ✗ 1. अनामंत्रित
- ✓ 2. खर्च
- ✗ 3. अनाशक्त
- ✗ 4. अनावृष्टि

Section : **English Language and Comprehension**

Q.1 **Choose the most appropriate one-word substitute for the underlined expression.**
When questioned about her groundbreaking interpretation of historical and psychological trauma in Han Kang's novels, the doctoral candidate responded with <u>modesty and hesitation resulting from a lack of self-confidence</u>, attributing the insights entirely to her external examiners.

Ans
- ✗ 1. trepidation
- ✗ 2. servility
- ✓ 3. diffidence
- ✗ 4. reticence

Q.2 **Select the option that can be used as a one-word substitute for the underlined group of words in the given sentence.**

Reed is a <u>person who studies elections and voting patterns</u>.

Ans
- ✗ 1. Sociologist
- ✓ 2. Psephologist
- ✗ 3. Demographer
- ✗ 4. Statistician

QuickSarkari.com | WhatsApp Channel | Telegram: t.me/quick_sarkari

Q.3 **Choose the most appropriate one-word substitute for the underlined expression.**
When challenged by the external examiner regarding the apparent methodological flaws in his thesis, the candidate attempted to use ambiguous language so as to conceal the truth or avoid committing to a definitive answer.

Ans
- ✗ 1. dissemble
- ✗ 2. pontificate
- ✗ 3. obfuscate
- ✓ 4. equivocate

Q.4 **Select the most appropriate antonym of the underlined word in the given sentence.**
The witness appeared imperturbable throughout the proceedings.

Ans
- ✓ 1. anxious
- ✗ 2. detached
- ✗ 3. circumspect
- ✗ 4. composed

Q.5 **Which one-word substitute best fits the words given in quotes?**

Despite the disaster, the community showed remarkable 'ability to recover quickly from difficulties'.

Ans
- ✗ 1. Credulity
- ✗ 2. Gregariousness
- ✗ 3. Nostalgia
- ✓ 4. Resilience

Q.6 **Which of the following sentences contains an incorrect adjective collocation or grammatical construction?**

Ans
- ✓ 1. The secretary-general noted that current compliance levels are as high, if not higher than, previous ones.
- ✗ 2. The regulatory body expressed serious concern over the increasingly frequent sexualisation of younger television talent.
- ✗ 3. Broadcasters argued that imposing additional programming restraints was much harder without specific separate classifications.
- ✗ 4. The council emphasized that networks targeting younger audiences needed to be significantly more careful.

Q.7 **Select the most appropriate meaning of the given proverb.**

Don't wash your dirty linen in public.

Ans
- ✗ 1. Public places are not meant for arguments.
- ✗ 2. Always keep your house and clothes clean.
- ✗ 3. Do not clean clothes in public places.
- ✓ 4. Avoid discussing personal or family problems in public.

Q.8 **The following sentence has been divided into parts. One of them may contain an error. Select the part that contains the error from the given options. If you don’t find any error, mark ‘No error’ as your answer.**

The proposed solution (A) / appears effectively (B) / under the current circumstances. (C) No error (D)

Ans
- ✓ 1. B
- ✗ 2. D
- ✗ 3. C
- ✗ 4. A

QuickSarkari.com | WhatsApp Channel | Telegram: t.me/quick_sarkari

Q.9 **The first sentence is fixed. Arrange the following sentences in the most logical order to form a coherent paragraph.**
1. Academic writers frequently begin their research by gathering a wide range of source material.
2. This process becomes particularly important when different sources offer conflicting interpretations.
3. Simply collecting information from several sources, however, does not necessarily strengthen an argument.
4. Instead, writers must evaluate the evidence and determine how each source contributes to their central claim.
5. Such evaluation enables the distinction between evidence that merely supports an argument and evidence that complicates or challenges it.

Ans
✗ 1. 12354
✗ 2. 14253
✗ 3. 15432
✓ 4. 13425

Q.10 **Which of the following sentences contains an incorrect adjective collocation or grammatical construction?**

Ans
✗ 1. Creators often spend about nine months carefully developing a single eleven-minute episode for the animation network.
✓ 2. Many fans argued that the network's original programming was vastly superior than its acquired classic shows.
✗ 3. The studio's shorts unit spawned nine full series by allowing artists to work completely independently.
✗ 4. The channel delivered triple-digit growth for its mobile application by launching interactive superhero hybrid programs.

Q.11 **A sentence has been divided into four parts. Identify the part that contains a grammatical error.**
The revised proposal / is more superior /to the previous version / in addressing the identified concerns.

Ans
✗ 1. in addressing the identified concerns.
✓ 2. is more superior
✗ 3. The revised proposal
✗ 4. to the previous version

Q.12 **Identify the erroneous part of the sentence.**
Among the two candidates, she is the best qualified.

Ans
✗ 1. she is
✗ 2. two candidates,
✗ 3. Among the
✓ 4. the best qualified.

Q.13 **The following sentence has been divided into parts. One of them may contain an error. Select the part that contains the error from the given options. If you don't find any error, mark 'No error' as your answer.**

Those kind of conclusions (A) / often emerge from (B) / incomplete statistical analyses. (C) / No error (D)

Ans
✗ 1. C
✗ 2. D
✓ 3. A
✗ 4. B

Q.14 **Which one-word substitute best fits the words given in quotes?**

His 'fondness for talking about oneself' made conversations with him repetitive.

Ans
✗ 1. Realism
✗ 2. Altruism
✓ 3. Egotism
✗ 4. Optimism

QuickSarkari.com | WhatsApp Channel | Telegram: t.me/quick_sarkari

Q.15 **A sentence divided into multiple segments is given below. The first segment is fixed, while the rest are jumbled. Rearrange the jumbled segments to form a coherent statement.**
Time management enables students / (P) by prioritising important tasks / (Q) to achieve academic goals / (R) without compromising their well-being / (S) throughout the semester

Ans
- ✘ 1. PRQS
- ✔ 2. QPRS
- ✘ 3. RPSQ
- ✘ 4. SQRP

Comprehension:

In the following passage, some words have been deleted. Fill in the blanks with the help of the alternatives given. Select the most appropriate option for each number.
Swamy was in his backyard, enjoying a sunny afternoon, when he decided to climb the large tree near his house. He carefully scaled up to the middle part of the tree and **(1)** ______ hit a beehive hanging from a branch. Before he realized what had happened, a swarm of angry bees was **(2)** _______ around him. They started attacking him **(3)**_______ and he couldn't escape. Swamy let out a loud **(4)**_____as the bees surrounded him. In a panic, he **(5)**_____down from the tree, landing safely but shaking from the experience.

SubQuestion No : 16

Q.16 **Select the most appropriate option to fill in blank 1.**

Ans
- ✘ 1. boorishly
- ✘ 2. fervently
- ✘ 3. stunningly
- ✔ 4. accidentally

Comprehension:

In the following passage, some words have been deleted. Fill in the blanks with the help of the alternatives given. Select the most appropriate option for each number.
Swamy was in his backyard, enjoying a sunny afternoon, when he decided to climb the large tree near his house. He carefully scaled up to the middle part of the tree and **(1)** ______ hit a beehive hanging from a branch. Before he realized what had happened, a swarm of angry bees was **(2)** _______ around him. They started attacking him **(3)**_______ and he couldn't escape. Swamy let out a loud **(4)**_____as the bees surrounded him. In a panic, he **(5)**_____down from the tree, landing safely but shaking from the experience.

SubQuestion No : 17

Q.17 **Select the most appropriate option to fill in blank 2.**

Ans
- ✔ 1. circling
- ✘ 2. ridging
- ✘ 3. fluttering
- ✘ 4. swamping

Comprehension:

In the following passage, some words have been deleted. Fill in the blanks with the help of the alternatives given. Select the most appropriate option for each number.
Swamy was in his backyard, enjoying a sunny afternoon, when he decided to climb the large tree near his house. He carefully scaled up to the middle part of the tree and **(1)** ______ hit a beehive hanging from a branch. Before he realized what had happened, a swarm of angry bees was **(2)** _______ around him. They started attacking him **(3)**_______ and he couldn't escape. Swamy let out a loud **(4)**_____as the bees surrounded him. In a panic, he **(5)**_____down from the tree, landing safely but shaking from the experience.

SubQuestion No : 18

Q.18 **Select the most appropriate option to fill in blank 3.**

Ans
- ✔ 1. fiercely
- ✘ 2. ostentatiously
- ✘ 3. alluringly
- ✘ 4. assertively

QuickSarkari.com | WhatsApp Channel | Telegram: t.me/quick_sarkari

Comprehension:

In the following passage, some words have been deleted. Fill in the blanks with the help of the alternatives given. Select the most appropriate option for each number.
Swamy was in his backyard, enjoying a sunny afternoon, when he decided to climb the large tree near his house. He carefully scaled up to the middle part of the tree and **(1)** ______ hit a beehive hanging from a branch. Before he realized what had happened, a swarm of angry bees was **(2)** _______ around him. They started attacking him **(3)**_______ and he couldn't escape. Swamy let out a loud **(4)**_____as the bees surrounded him. In a panic, he **(5)**_____down from the tree, landing safely but shaking from the experience.

SubQuestion No : 19

Q.19 **Select the most appropriate option to fill in blank 4.**

Ans

1. shiver ✗
2. whine ✗
3. shrill ✗
4. scream ✓

Comprehension:

In the following passage, some words have been deleted. Fill in the blanks with the help of the alternatives given. Select the most appropriate option for each number.
Swamy was in his backyard, enjoying a sunny afternoon, when he decided to climb the large tree near his house. He carefully scaled up to the middle part of the tree and **(1)** ______ hit a beehive hanging from a branch. Before he realized what had happened, a swarm of angry bees was **(2)** _______ around him. They started attacking him **(3)**_______ and he couldn't escape. Swamy let out a loud **(4)**_____as the bees surrounded him. In a panic, he **(5)**_____down from the tree, landing safely but shaking from the experience.

SubQuestion No : 20

Q.20 **Select the most appropriate option to fill in blank 5.**

Ans

1. bundled ✗
2. tumbled ✓
3. crumbled ✗
4. trapped ✗

Section : **English Language and Comprehension 2**

Q.1 **Choose the most suitable opposite of the underlined word in the given sentence:**
The speaker gave a heartfelt <u>panegyric</u>, praising the philanthropist for his generous contributions to society.

Ans

1. gratification ✗
2. oration ✗
3. testimony ✗
4. denunciation ✓

Q.2 **Select the most appropriate meaning of the given proverb.**
Accidents will happen in the best regulated families

Ans

1. Mishaps and setbacks are just a natural and inevitable part of life ✓
2. Time seems to pass more slowly when you're eagerly waiting for something ✗
3. Evil thoughts come to us easily when we are idle ✗
4. Stepping out of our comfort zone is the hardest step ✗

Q.3 **Select the most appropriate option to fill in the blanks.**

If you drop the vase, it _____; I _____ it up right now so that nobody _____ hurt.

Ans

1. breaks; will pick; gets ✗
2. will break; am going to pick; will get ✗
3. breaks; pick; will get ✗
4. will break; will pick; gets ✓

QuickSarkari.com | WhatsApp Channel | Telegram: t.me/quick_sarkari

Q.4 **Identify the antonym of the underlined word in the given sentence.**

The jellyfish blooms can decimate other fish species as they prey on fish larvae.

Ans
1. deduce ✗
2. destroy ✗
3. proliferate ✓
4. flout ✗

Q.5 **Choose the correct meaning of the idiom given below.**

"A stitch in time saves nine."

Ans
1. It is better to wait for the right moment to act. ✗
2. Taking quick action prevents bigger problems later. ✓
3. One should focus on the bigger picture rather than small details. ✗
4. Patience always leads to success. ✗

Q.6 **Select the option that uses the correct form of the future tense.**

Ans
1. The company will introduce new wired headphones after the current model is retired. ✓
2. The company will have introduced new wired headphones after the current model is retired. ✗
3. The company has introduced new wired headphones after the current model is retired. ✗
4. The company introduced new wired headphones after the current model is retired. ✗

Q.7 **Select the option with the correct Passive voice usage.**
The panel may reconsider its earlier recommendations.

Ans
1. The earlier recommendations could have been reconsidered by the panel ✗
2. Earlier recommendations will be reconsidered by the panel ✗
3. The panel might have reconsidered its earlier recommendations ✗
4. Its earlier recommendations may be reconsidered by the panel ✓

Q.8 **Select the option where the given sentence has been correctly converted to its Passive form.**
The company has launched several innovative products this year.

Ans
1. Several innovative products have been launched by the company this year. ✓
2. Several innovative products are launched by the company this year. ✗
3. Several innovative products will be launched by the company this year. ✗
4. Several innovative products had been launched by the company this year. ✗

Q.9 **Convert the following sentence from indirect speech to direct speech.**
She told him that she had already completed the report.

Ans
1. She said to him, "I have already completed the report." ✓
2. She told him, "I would complete the report." ✗
3. She said to him, "I will complete the report." ✗
4. She told him, "I had already complete the report." ✗

Q.10 **Read the following sentence and convert it into indirect speech.**
He said, "I was waiting for the train."

Ans
1. He said that he has been waiting for the train. ✗
2. He said that he had waited for the train. ✗
3. He said that he had been waiting for the train. ✓
4. He said that he was waited for the train. ✗

QuickSarkari.com | WhatsApp Channel | Telegram: t.me/quick_sarkari

Comprehension:

Read the given passage and answer questions that follow.

The Hornbill Festival, often referred to as the "Festival of Festivals," is a vibrant and grand celebration of Nagaland's rich tribal heritage. Held annually in the first week of December at the Kisama Heritage Village, near Kohima, the festival serves as a confluence of the state's sixteen indigenous tribes, each showcasing its distinct traditions, music, dance, and craftsmanship. Instituted by the Government of Nagaland in 2000, the event aims to preserve and promote the state's diverse cultural identity while fostering unity among its tribes.
At the heart of the festival lies an array of cultural performances, including warrior dances, folk music, and indigenous games, which vividly illustrate the ethos and valor of Naga traditions. The Morungs—traditional tribal huts—serve as interactive spaces where visitors can immerse themselves in the customs, cuisines, and artisanal crafts of different communities. The festival also features the much-acclaimed Hornbill Rock Contest, an event that attracts musicians from across the country, adding a contemporary dimension to the celebrations.
Beyond its cultural significance, the Hornbill Festival has become a major tourist attraction, drawing global visitors and providing an economic boost to local artisans and entrepreneurs. It encapsulates the spirit of Nagaland's past while embracing modernity, making it a dynamic platform for cultural exchange and preservation. Ultimately, the festival is not merely a spectacle but a testament to the resilience, creativity, and communal harmony of the Naga people.

SubQuestion No : 11

Q.11 **What was the primary aim of establishing the Hornbill Festival in 2000?**

Ans

✗ 1. Integrate Western cultural influences with Naga traditions

✓ 2. Foster inter-tribal unity while preserving indigenous customs

✗ 3. Promote Nagaland as a global economic hub

✗ 4. Replace traditional tribal festivals with a singular event

Comprehension:

Read the given passage and answer questions that follow.

The Hornbill Festival, often referred to as the "Festival of Festivals," is a vibrant and grand celebration of Nagaland's rich tribal heritage. Held annually in the first week of December at the Kisama Heritage Village, near Kohima, the festival serves as a confluence of the state's sixteen indigenous tribes, each showcasing its distinct traditions, music, dance, and craftsmanship. Instituted by the Government of Nagaland in 2000, the event aims to preserve and promote the state's diverse cultural identity while fostering unity among its tribes.
At the heart of the festival lies an array of cultural performances, including warrior dances, folk music, and indigenous games, which vividly illustrate the ethos and valor of Naga traditions. The Morungs—traditional tribal huts—serve as interactive spaces where visitors can immerse themselves in the customs, cuisines, and artisanal crafts of different communities. The festival also features the much-acclaimed Hornbill Rock Contest, an event that attracts musicians from across the country, adding a contemporary dimension to the celebrations.
Beyond its cultural significance, the Hornbill Festival has become a major tourist attraction, drawing global visitors and providing an economic boost to local artisans and entrepreneurs. It encapsulates the spirit of Nagaland's past while embracing modernity, making it a dynamic platform for cultural exchange and preservation. Ultimately, the festival is not merely a spectacle but a testament to the resilience, creativity, and communal harmony of the Naga people.

SubQuestion No : 12

Q.12 **Which of the following aspects of the Hornbill Festival best represents its blend of traditional and contemporary cultural elements?**

Ans

✗ 1. The introduction of modern agricultural techniques through festival exhibits

✗ 2. The economic impact of tourism on local communities

✗ 3. The Morungs and their role in preserving tribal knowledge

✓ 4. The inclusion of folk performances alongside a national rock music contest

Comprehension:

Read the given passage and answer questions that follow.

The Hornbill Festival, often referred to as the "Festival of Festivals," is a vibrant and grand celebration of Nagaland's rich tribal heritage. Held annually in the first week of December at the Kisama Heritage Village, near Kohima, the festival serves as a confluence of the state's sixteen indigenous tribes, each showcasing its distinct traditions, music, dance, and craftsmanship. Instituted by the Government of Nagaland in 2000, the event aims to preserve and promote the state's diverse cultural identity while fostering unity among its tribes.
At the heart of the festival lies an array of cultural performances, including warrior dances, folk music, and indigenous games, which vividly illustrate the ethos and valor of Naga traditions. The Morungs—traditional tribal huts—serve as interactive spaces where visitors can immerse themselves in the customs, cuisines, and artisanal crafts of different communities. The festival also features the much-acclaimed Hornbill Rock Contest, an event that attracts musicians from across the country, adding a contemporary dimension to the celebrations.
Beyond its cultural significance, the Hornbill Festival has become a major tourist attraction, drawing global visitors and providing an economic boost to local artisans and entrepreneurs. It encapsulates the spirit of Nagaland's past while embracing modernity, making it a dynamic platform for cultural exchange and preservation. Ultimately, the festival is not merely a spectacle but a testament to the resilience, creativity, and communal harmony of the Naga people.

SubQuestion No : 13

Q.13 **Based on the passage, which of the following best explains why the Hornbill Festival is referred to as the "Festival of Festivals"?**

Ans

✗ 1. It attracts more international visitors than any other festival in India.

✗ 2. It symbolizes the dominance of the hornbill bird in Naga folklore.

✗ 3. It primarily focuses on musical performances that transcend tribal divisions.

✓ 4. It merges cultural expressions from multiple Naga tribes into a unified event.

Comprehension:

Read the given passage and answer questions that follow.

The Hornbill Festival, often referred to as the "Festival of Festivals," is a vibrant and grand celebration of Nagaland's rich tribal heritage. Held annually in the first week of December at the Kisama Heritage Village, near Kohima, the festival serves as a confluence of the state's sixteen indigenous tribes, each showcasing its distinct traditions, music, dance, and craftsmanship. Instituted by the Government of Nagaland in 2000, the event aims to preserve and promote the state's diverse cultural identity while fostering unity among its tribes.
At the heart of the festival lies an array of cultural performances, including warrior dances, folk music, and indigenous games, which vividly illustrate the ethos and valor of Naga traditions. The Morungs—traditional tribal huts—serve as interactive spaces where visitors can immerse themselves in the customs, cuisines, and artisanal crafts of different communities. The festival also features the much-acclaimed Hornbill Rock Contest, an event that attracts musicians from across the country, adding a contemporary dimension to the celebrations.
Beyond its cultural significance, the Hornbill Festival has become a major tourist attraction, drawing global visitors and providing an economic boost to local artisans and entrepreneurs. It encapsulates the spirit of Nagaland's past while embracing modernity, making it a dynamic platform for cultural exchange and preservation. Ultimately, the festival is not merely a spectacle but a testament to the resilience, creativity, and communal harmony of the Naga people.

SubQuestion No : 14

Q.14 **Choose the antonym of "resilience" as used in the passage.**

Ans

✗ 1. Adaptability

✓ 2. Fragility

✗ 3. Perseverance

✗ 4. Vitality

QuickSarkari.com | WhatsApp Channel | Telegram: t.me/quick_sarkari

Comprehension:

Read the given passage and answer questions that follow.

The Hornbill Festival, often referred to as the "Festival of Festivals," is a vibrant and grand celebration of Nagaland's rich tribal heritage. Held annually in the first week of December at the Kisama Heritage Village, near Kohima, the festival serves as a confluence of the state's sixteen indigenous tribes, each showcasing its distinct traditions, music, dance, and craftsmanship. Instituted by the Government of Nagaland in 2000, the event aims to preserve and promote the state's diverse cultural identity while fostering unity among its tribes.
At the heart of the festival lies an array of cultural performances, including warrior dances, folk music, and indigenous games, which vividly illustrate the ethos and valor of Naga traditions. The Morungs—traditional tribal huts—serve as interactive spaces where visitors can immerse themselves in the customs, cuisines, and artisanal crafts of different communities. The festival also features the much-acclaimed Hornbill Rock Contest, an event that attracts musicians from across the country, adding a contemporary dimension to the celebrations.
Beyond its cultural significance, the Hornbill Festival has become a major tourist attraction, drawing global visitors and providing an economic boost to local artisans and entrepreneurs. It encapsulates the spirit of Nagaland's past while embracing modernity, making it a dynamic platform for cultural exchange and preservation. Ultimately, the festival is not merely a spectacle but a testament to the resilience, creativity, and communal harmony of the Naga people.

SubQuestion No : 15

Q.15 What is the overall tone of the passage?

Ans
- ✗ 1. Nostalgic and melancholic
- ✓ 2. Celebratory and informative
- ✗ 3. Analytical yet skeptical
- ✗ 4. Controversial and argumentative

Comprehension:

Read the following passage carefully and answer the questions that follow:
The Gandhis belong to the Bania caste and seem to have been originally grocers. But for three generations, from my grandfather, they have been Prime Ministers in several Kathiawad States. Uttamchand Gandhi, *alias* Ota Gandhi, my grandfather, must have been a man of principle. State intrigues compelled him to leave Porbandar, where he was Diwan, and to seek refuge in Junagadh. There he saluted the Nawab with the left hand. Someone, noticing the apparent discourtesy, asked for an explanation, which was thus given: 'The right hand is already pledged to Porbandar.
Ota Gandhi married a second time, having lost his first wife. He had four sons by his first wife and two by his second wife. I do not think that in my childhood I ever felt or knew that these sons of Ota Gandhi were not all of the same mother. The fifth of these six brothers was Karamchand Gandhi, *alias* Kaba Gandhi, and the sixth was Tulsidas Gandhi. Both these brothers were Prime Ministers in Porbandar, one after the other. Kaba Gandhi was my father. He was a member of the Rajasthanik Court. It is now extinct, but in those days it was a very influential body for settling disputes between the chiefs and their fellow clansmen. He was for some time Prime Minister in Rajkot and then in Vankaner. He was a pensioner of the Rajkot State when he died.

SubQuestion No : 16

Q.16 Choose the most appropriate antonym of the word 'Influential'.

Ans
- ✗ 1. Massive
- ✗ 2. Effective
- ✗ 3. Dominant
- ✓ 4. Incapable

Comprehension:

Read the following passage carefully and answer the questions that follow:
The Gandhis belong to the Bania caste and seem to have been originally grocers. But for three generations, from my grandfather, they have been Prime Ministers in several Kathiawad States. Uttamchand Gandhi, *alias* Ota Gandhi, my grandfather, must have been a man of principle. State intrigues compelled him to leave Porbandar, where he was Diwan, and to seek refuge in Junagadh. There he saluted the Nawab with the left hand. Someone, noticing the apparent discourtesy, asked for an explanation, which was thus given: 'The right hand is already pledged to Porbandar.
Ota Gandhi married a second time, having lost his first wife. He had four sons by his first wife and two by his second wife. I do not think that in my childhood I ever felt or knew that these sons of Ota Gandhi were not all of the same mother. The fifth of these six brothers was Karamchand Gandhi, *alias* Kaba Gandhi, and the sixth was Tulsidas Gandhi. Both these brothers were Prime Ministers in Porbandar, one after the other. Kaba Gandhi was my father. He was a member of the Rajasthanik Court. It is now extinct, but in those days it was a very influential body for settling disputes between the chiefs and their fellow clansmen. He was for some time Prime Minister in Rajkot and then in Vankaner. He was a pensioner of the Rajkot State when he died.

SubQuestion No : 17

Q.17 Which of the following titles best reflects the main subject of the passage?

Ans
- ✗ 1. The History of the Bania Caste in India
- ✗ 2. The Rise and Fall of the Rajasthanik Court
- ✗ 3. The Political Intrigue of Kathiawad
- ✓ 4. The Ancestry and Career of Karamchand Gandhi

Comprehension:

Read the following passage carefully and answer the questions that follow:
The Gandhis belong to the Bania caste and seem to have been originally grocers. But for three generations, from my grandfather, they have been Prime Ministers in several Kathiawad States. Uttamchand Gandhi, *alias* Ota Gandhi, my grandfather, must have been a man of principle. State intrigues compelled him to leave Porbandar, where he was Diwan, and to seek refuge in Junagadh. There he saluted the Nawab with the left hand. Someone, noticing the apparent discourtesy, asked for an explanation, which was thus given: 'The right hand is already pledged to Porbandar.
Ota Gandhi married a second time, having lost his first wife. He had four sons by his first wife and two by his second wife. I do not think that in my childhood I ever felt or knew that these sons of Ota Gandhi were not all of the same mother. The fifth of these six brothers was Karamchand Gandhi, *alias* Kaba Gandhi, and the sixth was Tulsidas Gandhi. Both these brothers were Prime Ministers in Porbandar, one after the other. Kaba Gandhi was my father. He was a member of the Rajasthanik Court. It is now extinct, but in those days it was a very influential body for settling disputes between the chiefs and their fellow clansmen. He was for some time Prime Minister in Rajkot and then in Vankaner. He was a pensioner of the Rajkot State when he died.

SubQuestion No : 18

Q.18 What was Karamchand Gandhi's (Kaba Gandhi's) role in the Rajasthanik Court?

Ans
- ✗ 1. He was a critic of the court
- ✓ 2. He was a member of the court
- ✗ 3. He was the founder of the court
- ✗ 4. He was a historian of the court

Comprehension:

Read the following passage carefully and answer the questions that follow:
The Gandhis belong to the Bania caste and seem to have been originally grocers. But for three generations, from my grandfather, they have been Prime Ministers in several Kathiawad States. Uttamchand Gandhi, *alias* Ota Gandhi, my grandfather, must have been a man of principle. State intrigues compelled him to leave Porbandar, where he was Diwan, and to seek refuge in Junagadh. There he saluted the Nawab with the left hand. Someone, noticing the apparent discourtesy, asked for an explanation, which was thus given: 'The right hand is already pledged to Porbandar.
Ota Gandhi married a second time, having lost his first wife. He had four sons by his first wife and two by his second wife. I do not think that in my childhood I ever felt or knew that these sons of Ota Gandhi were not all of the same mother. The fifth of these six brothers was Karamchand Gandhi, *alias* Kaba Gandhi, and the sixth was Tulsidas Gandhi. Both these brothers were Prime Ministers in Porbandar, one after the other. Kaba Gandhi was my father. He was a member of the Rajasthanik Court. It is now extinct, but in those days it was a very influential body for settling disputes between the chiefs and their fellow clansmen. He was for some time Prime Minister in Rajkot and then in Vankaner. He was a pensioner of the Rajkot State when he died.

SubQuestion No : 19

Q.19 Why did Uttamchand Gandhi leave Porbandar and seek refuge in Junagadh?

Ans
- ✗ 1. He was invited by the Nawab of Junagadh
- ✗ 2. He wanted to start a new business in Junagadh
- ✓ 3. State intrigues forced him to leave Porbandar
- ✗ 4. He was appointed Prime Minister in Junagadh

Comprehension:

Read the following passage carefully and answer the questions that follow:
The Gandhis belong to the Bania caste and seem to have been originally grocers. But for three generations, from my grandfather, they have been Prime Ministers in several Kathiawad States. Uttamchand Gandhi, *alias* Ota Gandhi, my grandfather, must have been a man of principle. State intrigues compelled him to leave Porbandar, where he was Diwan, and to seek refuge in Junagadh. There he saluted the Nawab with the left hand. Someone, noticing the apparent discourtesy, asked for an explanation, which was thus given: 'The right hand is already pledged to Porbandar.
Ota Gandhi married a second time, having lost his first wife. He had four sons by his first wife and two by his second wife. I do not think that in my childhood I ever felt or knew that these sons of Ota Gandhi were not all of the same mother. The fifth of these six brothers was Karamchand Gandhi, *alias* Kaba Gandhi, and the sixth was Tulsidas Gandhi. Both these brothers were Prime Ministers in Porbandar, one after the other. Kaba Gandhi was my father. He was a member of the Rajasthanik Court. It is now extinct, but in those days it was a very influential body for settling disputes between the chiefs and their fellow clansmen. He was for some time Prime Minister in Rajkot and then in Vankaner. He was a pensioner of the Rajkot State when he died.

SubQuestion No : 20

Q.20 What was the primary occupation of the Gandhi family for three generations, according to the passage?

Ans
- ✗ 1. Grocers
- ✗ 2. Court Officials
- ✗ 3. Merchants
- ✓ 4. Prime Ministers

"

QuickSarkari.com | WhatsApp Channel | Telegram: t.me/quick_sarkari

Quick
Sarkari

Thank you for studying with QuickSarkari!

Get the latest Sarkari Naukri notifications, admit cards, results, answer keys and free previous-year papers first - follow us on WhatsApp and Telegram.

Visit www.quicksarkari.com

Join our WhatsApp Channel

https://whatsapp.com/channel/0029VaxxbrREquiPoXTWM229

Join our Telegram Channel

https://t.me/quick_sarkari

Share this PDF with your friends preparing for DSSSB exams.