DSSSB PREVIOUS YEAR PAPER WITH ANSWER KEY

DSSSB Assistant Security Officer

1 March 2026 · Shift 2

डीएसएसएसबी सहायक सुरक्षा अधिकारी – 1 मार्च 2026, शिफ्ट 2 का प्रश्न पत्र, उत्तर कुंजी सहित

200	120 min	1 / −0.25	EN + HI
Questions / प्रश्न	Duration / समय	Marks per Q / अंक	Language / भाषा

Sections: General intelligence and Reasoning Ability, General Awareness, Arithmetical and Numerical Ability, English Language and Comprehension, Hindi Language and Comprehension

INSIDE THIS PDF / इस PDF में

Question Paper in English + Hindi with Answer Key (correct option marked in green) + answer table — Page 2–52
प्रश्न पत्र अंग्रेज़ी + हिंदी में, उत्तर कुंजी सहित (सही विकल्प हरे रंग में) + उत्तर तालिका

Official DSSSB Response Sheet with Answer Key (correct option ticked in green) — Page 53–124
आधिकारिक DSSSB रिस्पॉन्स शीट, उत्तर कुंजी सहित (सही विकल्प हरे टिक से)

HOW TO USE THIS PAPER / इस पेपर का उपयोग कैसे करें

1. Attempt the paper first as a timed online mock test (link below).
   पहले नीचे दिए लिंक से इसे टाइमर के साथ ऑनलाइन मॉक टेस्ट के रूप में हल करें।
2. Check your score, section-wise analysis and solutions online.
   ऑनलाइन अपना स्कोर, खंड-वार विश्लेषण और हल देखें।
3. Use this PDF for revision. Correct answers are shown in green.
   दोहराने के लिए इस PDF का उपयोग करें। सही उत्तर हरे रंग में दिए गए हैं।

Attempt this paper as a FREE online mock test
इस पेपर को फ्री ऑनलाइन मॉक टेस्ट के रूप में हल करें – टाइमर, स्कोर और हल के साथ
https://quicksarkari.com/dsssb-assistant-security-officer-01-march-2026-shift-2-mock-test/

All DSSSB Assistant Security Officer papers and mock tests: **quicksarkari.com/dsssb-mock-test/#assistant-security-officer**

Join WhatsApp Channel | **Join Telegram Channel**

DSSSB Assistant Security Officer – Question Paper (English + Hindi)

DSSSB सहायक सुरक्षा अधिकारी – प्रश्न पत्र (अंग्रेज़ी + हिंदी)

Exam held on 1 March 2026, Shift 2 · 200 questions · correct answers marked ✔ in green
परीक्षा तिथि 1 मार्च 2026, शिफ्ट 2 · 200 प्रश्न · सही उत्तर हरे रंग में ✔ से चिह्नित

> The official paper for this shift was in English. The Hindi version of each question is a translation prepared by QuickSarkari; the language-section questions are shown as asked.
> इस शिफ्ट का आधिकारिक प्रश्न पत्र अंग्रेज़ी में था। प्रत्येक प्रश्न का हिंदी संस्करण QuickSarkari द्वारा तैयार किया गया अनुवाद है; भाषा खंड के प्रश्न मूल रूप में दिए गए हैं।

General intelligence and Reasoning Ability

Q.1 Seven people, L, A, Y, O, U, T and S are sitting in a row, facing north.
Only three people sit to the left of T. Only S sits to the right of L. Only three people sit between L and O. U sits at some place to the left of A but at some place to the right of Y.
How many people sit between Y and A?

सात व्यक्ति, L, A, Y, O, U, T और S एक पंक्ति में उत्तर की ओर मुख करके बैठे हैं।
T के बाईं ओर केवल तीन व्यक्ति बैठे हैं। L के दाईं ओर केवल S बैठा है। L और O के बीच केवल तीन व्यक्ति बैठे हैं। U, A के बाईं ओर किसी स्थान पर, किंतु Y के दाईं ओर किसी स्थान पर बैठा है।
Y और A के बीच कितने व्यक्ति बैठे हैं?

(1) Three / तीन ✔
(2) One / एक
(3) Two / दो
(4) Four / चार

Q.2 C, O, B, R, A and S live on six different floors of the same building. The lowermost floor in the building is numbered 1, the floor above it, number 2 and so on till the topmost floor is numbered 6. Only B lives above A. C lives immediately below A. Only R lives below S. Who lives on floor numbered 3?

C, O, B, R, A और S एक ही इमारत की छह अलग-अलग मंजिलों पर रहते हैं। इमारत की सबसे निचली मंजिल की संख्या 1 है, उसके ऊपर वाली मंजिल की संख्या 2 है और इसी प्रकार सबसे ऊपरी मंजिल की संख्या 6 है। A के ऊपर केवल B रहता है। C, A के ठीक नीचे रहता है। S के नीचे केवल R रहता है। मंजिल संख्या 3 पर कौन रहता है?

(1) O ✔
(2) R
(3) A
(4) C

Q.3 Refer to the following letter series and answer the question. Counting to be done from left to right only.
(Left) P I Y U J A N F Q S B C R A V P J J Q (Right)
How many such consonants are there each of which is immediately preceded by a vowel and also immediately followed by a vowel?

निम्नलिखित अक्षर श्रृंखला को देखें और प्रश्न का उत्तर दें। गिनती केवल बाएं से दाएं की जानी है।
(बाएं) P I Y U J A N F Q S B C R A V P J J Q (दाएं)
ऐसे कितने व्यंजन हैं, जिनमें से प्रत्येक के ठीक पहले एक स्वर है और ठीक बाद में भी एक स्वर है?

(1) Four / चार
(2) One / एक
(3) Three / तीन
(4) Two / दो ✔

Q.4 Seven people, G, L, A, M, O, U and R are sitting in a row, facing north.
No one sits to the left of L. Only four people sit between L and O. Only three people sit to the right of G. U sits to the immediate left of R. M is not an immediate neighbor of G.
Who sits at the rightmost end of the line?

सात व्यक्ति, G, L, A, M, O, U और R एक पंक्ति में उत्तर की ओर मुख करके बैठे हैं।
L के बाईं ओर कोई नहीं बैठा है। L और O के बीच केवल चार व्यक्ति बैठे हैं। G के दाईं ओर केवल तीन व्यक्ति बैठे हैं। U, R के ठीक बाईं ओर बैठा है। M, G का निकटतम पड़ोसी नहीं है।
पंक्ति के सबसे दाएं छोर पर कौन बैठा है?

(1) U
(2) M ✔
(3) A
(4) G

Q.5 C, O, B, R, A and S live on six different floors of the same building. The lowermost floor in the building is numbered 1, the floor above it, number 2 and so on till the topmost floor is numbered 6. Only two people live between C and O. Only two people live between B and S. No one lives above B. O lives below S but above R.
How many people live below A?

C, O, B, R, A और S एक ही इमारत की छह अलग-अलग मंजिलों पर रहते हैं। इमारत की सबसे निचली मंजिल की संख्या 1 है, उसके ऊपर वाली मंजिल की संख्या 2 है और इसी प्रकार सबसे ऊपरी मंजिल की संख्या 6 है। C और O के बीच केवल दो व्यक्ति रहते हैं। B और S के बीच केवल दो व्यक्ति रहते हैं। B के ऊपर कोई नहीं रहता है। O, S के नीचे किंतु R के ऊपर रहता है। A के नीचे कितने व्यक्ति रहते हैं?

(1) Three / तीन ✔
(2) One / एक
(3) Four / चार
(4) Two / दो

Q.6 Seven boxes A,L,R, M, I, N and G are kept one over the other but not necessarily in the same order.
No box is kept above A. Only three boxes are kept between A and L. Only one box is kept between I and M. M is kept immediately above L. Only four boxes are kept between I and R. G is kept at some place above N.
Which box is kept second below G?

सात बक्से A,L,R, M, I, N और G एक के ऊपर एक रखे गए हैं, लेकिन जरूरी नहीं कि इसी क्रम में हों।
A के ऊपर कोई बक्सा नहीं रखा गया है। A और L के बीच केवल तीन बक्से रखे गए हैं। I और M के बीच केवल एक बक्सा रखा गया है। M, L के ठीक ऊपर रखा गया है। I और R के बीच केवल चार बक्से रखे गए हैं। G, N के ऊपर किसी स्थान पर रखा गया है।
G के नीचे दूसरे स्थान पर कौन-सा बक्सा रखा गया है?

(1) N
(2) L ✔
(3) A
(4) M

Q.7 Six friends Poonam, Komal, Varun, Shree, Jiya, and Mudit are sitting in a straight line, facing north. Mudit sits third to the right of Shree. Shree is an immediate neighbor of Komal and Jiya. Varun sits second to the left of Poonam. Komal is not an immediate neighbor of Varun. Three of the following four are alike in a certain way based on the given arrangement and thus form a group. Which one does not belong to that group?

छह मित्र पूनम, कोमल, वरुण, श्री, जिया और मुदित एक सीधी पंक्ति में उत्तर की ओर मुख करके बैठे हैं। मुदित, श्री के दाईं ओर तीसरे स्थान पर बैठा है। श्री, कोमल और जिया दोनों का निकटतम पड़ोसी है। वरुण, पूनम के बाईं ओर दूसरे स्थान पर बैठा है। कोमल, वरुण की निकटतम पड़ोसी नहीं है। दी गई व्यवस्था के आधार पर निम्नलिखित चार में से तीन किसी निश्चित प्रकार से एक समान हैं और इस प्रकार एक समूह बनाते हैं। कौन-सा विकल्प उस समूह से संबंधित नहीं है?

(1) Komal and Poonam / कोमल और पूनम ✔

(2) Komal and Jiya / कोमल और जिया

(3) Jiya and Mudit / जिया और मुदित

(4) Shree and Varun / श्री और वरुण

Q.8 Seven boxes R, A, C, K, E, T and S are kept one over the other but not necessarily in the same order. Only two boxes are kept between E and R. Only C is kept above A. No box is kept below R. K is kept at some place below T but at some place above S.
Which box is kept third above S?

सात बक्से R, A, C, K, E, T और S एक के ऊपर एक रखे गए हैं, लेकिन जरूरी नहीं कि इसी क्रम में हों।
E और R के बीच केवल दो बक्से रखे गए हैं। A के ऊपर केवल C रखा गया है। R के नीचे कोई बक्सा नहीं रखा गया है। K, T के नीचे किसी स्थान पर किंतु S के ऊपर किसी स्थान पर रखा गया है।
S के ऊपर तीसरे स्थान पर कौन-सा बक्सा रखा गया है?

(1) R

(2) T ✔

(3) E

(4) C

QuickSarkari.com | WhatsApp Channel | Telegram: t.me/quick_sarkari

Q.9 In a certain language, 'A @ B' means 'A is the mother of B'
'A + B' means 'A is the brother of B'
'A $ B' means 'A is the wife of B'
'A x B' means 'A is the father of B'
Which of the following mean(s) that G is the mother's mother of P?
I. G @ F + K $ L x P
II. G + F @ K x L $ P
III. G @ F $ K x L + P
IV. G x F @ K + L $ P

एक निश्चित भाषा में, 'A @ B' का अर्थ है 'A, B की माता है'
'A + B' का अर्थ है 'A, B का भाई है'
'A $ B' का अर्थ है 'A, B की पत्नी है'
'A x B' का अर्थ है 'A, B का पिता है'
निम्नलिखित में से किसका/किनका अर्थ है कि G, P की माता की माता है?
I. G @ F + K $ L x P
II. G + F @ K x L $ P
III. G @ F $ K x L + P
IV. G x F @ K + L $ P

(1) Both I and IV / I और IV दोनों
(2) **Both I and III / I और III दोनों ✔**
(3) Only I / केवल I
(4) Both II and III / II और III दोनों

Q.10 G is the mother of H. H is the only son of J. L is the sister of H. M is the son of H. How is G related to M?
G, H की माता है। H, J का इकलौता पुत्र है। L, H की बहन है। M, H का पुत्र है। G का M से क्या संबंध है?

(1) Daughter / पुत्री
(2) Father's sister / पिता की बहन
(3) **Father's mother / पिता की माता ✔**
(4) Sister's daughter / बहन की पुत्री

Q.11 In a certain code language, 'POST' is coded as '4856' and 'MOST' is coded as '6428'. What is the code for 'M' in the given code language?
एक निश्चित कूट भाषा में, 'POST' को '4856' के रूप में कूटबद्ध किया जाता है और 'MOST' को '6428' के रूप में कूटबद्ध किया जाता है। दी गई कूट भाषा में 'M' के लिए कूट क्या है?

(1) 6
(2) 4
(3) 8
(4) **2 ✔**

Q.12 Refer to the following letter series and answer the question. Counting to be done from left to right only.
(Left) P Q R S T U V W X Y Z A B C (Right)
How many vowels are immediately preceded by consonants?

निम्नलिखित अक्षर श्रृंखला को देखें और प्रश्न का उत्तर दें। गिनती केवल बाएं से दाएं की जानी है।
(बाएं) P Q R S T U V W X Y Z A B C (दाएं)
कितने स्वरों के ठीक पहले व्यंजन है?

(1) Three / तीन
(2) One / एक
(3) Two / दो ✔
(4) Four / चार

Q.13 Refer to the following series and answer the question. Counting to be done from left to right only.
(Left) H T T H H T H T T T H H T (Right)
How many H's are immediately followed by a T?

निम्नलिखित श्रृंखला को देखें और प्रश्न का उत्तर दें। गिनती केवल बाएं से दाएं की जानी है।
(बाएं) H T T H H T H T T T H H T (दाएं)
कितने H के ठीक बाद T है?

(1) Two / दो
(2) Three / तीन
(3) Four / चार ✔
(4) Five / पाँच

Q.14 Refer to the following letter, symbol series and answer the question.
Counting to be done from left to right only.
(Left) % B % £ S & # % X A W % E U © W © S T % £ © (Right)
How many such symbols are there each of which is immediately preceded by a letter and also immediately followed by a letter?

निम्नलिखित अक्षर, प्रतीक श्रृंखला को देखें और प्रश्न का उत्तर दें।
गिनती केवल बाएं से दाएं की जानी है।
(बाएं) % B % £ S & # % X A W % E U © W © S T % £ © (दाएं)
ऐसे कितने प्रतीक हैं, जिनमें से प्रत्येक के ठीक पहले एक अक्षर है और ठीक बाद में भी एक अक्षर है?

(1) Four / चार
(2) Three / तीन ✔
(3) Two / दो
(4) Five / पाँच

QuickSarkari.com | WhatsApp Channel | Telegram: t.me/quick_sarkari

Q.15 Refer to the following letter series and answer the question that follows.
Counting to be done from left to right only.
(Left) B K F A E H Q K S D S L M Y M R Y R G W L (Right)
How many such vowels are there, each of which is immediately preceded by a consonant and also immediately followed by a consonant?

निम्नलिखित अक्षर श्रृंखला को देखें और उसके बाद दिए गए प्रश्न का उत्तर दें।
गिनती केवल बाएं से दाएं की जानी है।
(बाएं) B K F A E H Q K S D S L M Y M R Y R G W L (दाएं)
ऐसे कितने स्वर हैं, जिनमें से प्रत्येक के ठीक पहले एक व्यंजन है और ठीक बाद में भी एक व्यंजन है?

(1) Two / दो
(2) One / एक
(3) Three / तीन
(4) None / एक भी नहीं ✔

Q.16 W,I,N,T,E,R and S are sitting around a circular table facing the centre of the table.
Only two people sit between R and W when counted from the right of R. Only two people sit between W and N when counted from the right of W. Only three people sit between R and T when counted from the right of R. S sits to the immediate left of I. Who sits third to the left of E?

W,I,N,T,E,R और S एक वृत्ताकार मेज के चारों ओर मेज के केंद्र की ओर मुख करके बैठे हैं।
R के दाईं ओर से गिनने पर R और W के बीच केवल दो व्यक्ति बैठे हैं। W के दाईं ओर से गिनने पर W और N के बीच केवल दो व्यक्ति बैठे हैं। R के दाईं ओर से गिनने पर R और T के बीच केवल तीन व्यक्ति बैठे हैं। S, I के ठीक बाईं ओर बैठा है। E के बाईं ओर तीसरे स्थान पर कौन बैठा है?

(1) S
(2) N
(3) I ✔
(4) W

Q.17 In a certain code language, 'MOVE' is coded as '4179' and 'MORE' is coded as '0914'. What is the code for 'R' in the given code language?

एक निश्चित कूट भाषा में, 'MOVE' को '4179' के रूप में कूटबद्ध किया जाता है और 'MORE' को '0914' के रूप में कूटबद्ध किया जाता है। दी गई कूट भाषा में 'R' के लिए कूट क्या है?

(1) 1
(2) 0 ✔
(3) 7
(4) 9

Q.18 Refer to the following number, symbol series and answer the question.
Counting to be done from left to right only. (all numbers are single digit numbers only).
(Left) = 7 4 ? 9 4 % 5 1 + 5 > 8 3 1 β ≤ 4 ? 5 < 3 7 + 3 # 7 ? 5 1 ! 9 (Right)
How many such symbols are there each of which are immediately preceded by a perfect square and also immediately followed by a symbol? (NOTE: 1 is also a perfect square)

निम्नलिखित संख्या, प्रतीक श्रृंखला को देखें और प्रश्न का उत्तर दें।
गिनती केवल बाएं से दाएं की जानी है। (सभी संख्याएँ केवल एक अंक वाली संख्याएँ हैं)।
(बाएं) = 7 4 ? 9 4 % 5 1 + 5 > 8 3 1 β ≤ 4 ? 5 < 3 7 + 3 # 7 ? 5 1 ! 9 (दाएं)
ऐसे कितने प्रतीक हैं, जिनमें से प्रत्येक के ठीक पहले एक पूर्ण वर्ग संख्या है और ठीक बाद में भी एक प्रतीक है? (नोट: 1 भी एक पूर्ण वर्ग है)

(1) One / एक ✔
(2) Two / दो
(3) Three / तीन
(4) None / एक भी नहीं

Q.19 Each letter in the word PLATFORM is changed to the letter immediately following it in the English alphabetical order. How many letters are there in the English alphabetical series between the letter which is second from the left end and second from the right end in the new letter-cluster thus formed?

शब्द PLATFORM के प्रत्येक अक्षर को अंग्रेजी वर्णमाला क्रम में उसके ठीक बाद आने वाले अक्षर से बदल दिया जाता है। इस प्रकार बने नए अक्षर-समूह में बाएं छोर से दूसरे और दाएं छोर से दूसरे अक्षर के बीच अंग्रेजी वर्णमाला श्रृंखला में कितने अक्षर हैं?

(1) 6
(2) 4
(3) 7
(4) 5 ✔

Q.20 Refer to the following letter series and answer the question. Counting to be done from left to right only.
(Left) P Z C A G X T K P T K Z A I Q T K T P (Right)
How many such vowels are there each of which is immediately preceded by a consonant and also immediately followed by a consonant?

निम्नलिखित अक्षर श्रृंखला को देखें और प्रश्न का उत्तर दें। गिनती केवल बाएं से दाएं की जानी है।
(बाएं) P Z C A G X T K P T K Z A I Q T K T P (दाएं)
ऐसे कितने स्वर हैं, जिनमें से प्रत्येक के ठीक पहले एक व्यंजन है और ठीक बाद में भी एक व्यंजन है?

(1) Two / दो
(2) One / एक ✔
(3) Four / चार
(4) Three / तीन

Q.21 WY 5 is related to TV 10 in a certain way. In the same way, KM 15 is related to HJ 30. To which of the following is EG 8 related to following the same logic?

WY 5 एक निश्चित प्रकार से TV 10 से संबंधित है। उसी प्रकार, KM 15, HJ 30 से संबंधित है। उसी तर्क का अनुसरण करते हुए, EG 8 निम्नलिखित में से किससे संबंधित है?

(1) BZ 19
(2) BD 16 ✔
(3) AD 19
(4) AC 16

Q.22 Based on the alphabetical order, three of the following four are alike in a certain way and thus form a group. Which is the one that does not belong to that group?
(Note: The odd man out is not based on the number of consonants/vowels or their position in the letter cluster)
अंग्रेजी वर्णमाला क्रम के आधार पर, निम्नलिखित चार में से तीन किसी निश्चित प्रकार से एक समान हैं और इस प्रकार एक समूह बनाते हैं। वह कौन-सा विकल्प है जो उस समूह से संबंधित नहीं है?
(नोट: असंगत, व्यंजनों/स्वरों की संख्या या अक्षर-समूह में उनकी स्थिति पर आधारित नहीं है)

(1) KMH ✔
(2) MOI
(3) QSM
(4) OQK

Q.23 What should come in place of ? in the given series based on the English alphabetical order?
EAW SOK GCY UQM ?
अंग्रेजी वर्णमाला क्रम के आधार पर दी गई श्रृंखला में ? के स्थान पर क्या आना चाहिए?
EAW SOK GCY UQM ?

(1) IDZ
(2) IFZ
(3) IJL
(4) IEA ✔

Q.24 Select the set in which the numbers are related in the same way as are the numbers of the following sets.
(NOTE: Operations should be performed on the whole numbers, without breaking down the numbers into their constituent digits. E.g. 13 – Operations on 13 such as adding/subtracting/multiplying to 13 can be performed.
Breaking down 13 into 1 and 3 and then performing mathematical operations on 1 and 3 is not allowed.)
(6, 16, 34)
(9, 22, 40)
उस समुच्चय का चयन करें जिसमें संख्याएँ उसी प्रकार संबंधित हैं जिस प्रकार निम्नलिखित समुच्चयों की संख्याएँ संबंधित हैं।
(नोट: संख्याओं को उनके घटक अंकों में तोड़े बिना, पूर्ण संख्याओं पर संक्रियाएँ की जानी चाहिए। उदाहरण के लिए 13 – 13 पर संक्रियाएँ जैसे 13 में जोड़ना/घटाना/गुणा करना आदि किया जा सकता है।
13 को 1 और 3 में तोड़कर फिर 1 और 3 पर गणितीय संक्रियाएँ करने की अनुमति नहीं है।)
(6, 16, 34)
(9, 22, 40)

(1) (10, 24, 6)
(2) (7, 10, 28)
(3) (13, 30, 46)
(4) (8, 20, 38) ✔

Q.25 Select the correct mirror image of the given figure when the mirror is placed at PQ as shown below.



दी गई आकृति की सही दर्पण छवि का चयन करें, जब दर्पण को नीचे दर्शाए अनुसार PQ पर रखा जाता है।

(1) ꓘ X Σ Ɛ ⅂S

(2) ꓘ X Σ Ɛ ⅃Ƨ ✔

(3) ꓘ X 2 Ɛ ⅂S

(4) ꓘ X 2 3 ⅃S

Q.26 What will come in the place of '?' in the following equation, if '+' and '-' are interchanged and 'x' and '÷' are interchanged?

33 - 42 × 3 + 10 ÷ 19 = ?

यदि '+' और '-' को आपस में बदल दिया जाए तथा 'x' और '÷' को आपस में बदल दिया जाए, तो निम्नलिखित समीकरण में '?' के स्थान पर क्या आएगा?

33 - 42 × 3 + 10 ÷ 19 = ?

(1) -142

(2) -141

(3) -145

(4) **-143** ✔

Q.27 If 'A' stands for '÷', 'B' stands for '×', 'C' stands for '+' and 'D' stands for '−', what will come in place of the question mark '?' in the following equation?

78 D 9 B 6 C 56 A 4 = ?

यदि 'A' का अर्थ '÷', 'B' का अर्थ '×', 'C' का अर्थ '+' और 'D' का अर्थ '−' है, तो निम्नलिखित समीकरण में प्रश्न चिह्न '?' के स्थान पर क्या आएगा?

78 D 9 B 6 C 56 A 4 = ?

(1) 35

(2) 31

(3) 30

(4) **38** ✔

Q.28 Based on the alphabetical order, three of the following four are alike in a certain way and thus form a group. Which is the one that does not belong to that group?

(Note: The odd one out is not based on the number of consonants/vowels or their position in the letter cluster)

अंग्रेजी वर्णमाला क्रम के आधार पर, निम्नलिखित चार में से तीन किसी निश्चित प्रकार से एक समान हैं और इस प्रकार एक समूह बनाते हैं। वह कौन-सा विकल्प है जो उस समूह से संबंधित नहीं है?

(नोट: असंगत, व्यंजनों/स्वरों की संख्या या अक्षर-समूह में उनकी स्थिति पर आधारित नहीं है)

(1) KSAI

(2) **BIRZ** ✔

(3) VDLT

(4) RZHP

QuickSarkari.com | WhatsApp Channel | Telegram: t.me/quick_sarkari

Q.29 Based on the alphabetical order, three of the following four are alike in a certain way and thus form a group. Which is the one that does not belong to that group?
(Note: The odd man out is not based on the number of consonants/vowels or their position in the letter cluster)
अंग्रेजी वर्णमाला क्रम के आधार पर, निम्नलिखित चार में से तीन किसी निश्चित प्रकार से एक समान हैं और इस प्रकार एक समूह बनाते हैं। वह कौन-सा विकल्प है जो उस समूह से संबंधित नहीं है?
(नोट: असंगत, व्यंजनों/स्वरों की संख्या या अक्षर-समूह में उनकी स्थिति पर आधारित नहीं है)

(1) QRT
(2) KLN
(3) **GHK** ✔
(4) RSU

Q.30 If 1 is added to each odd digit and 2 is subtracted from each even digit in the number 7128534, what will be the difference of the digits which are second from the left and second from the right in the new number thus formed?
यदि संख्या 7128534 में प्रत्येक विषम अंक में 1 जोड़ा जाए और प्रत्येक सम अंक में से 2 घटाया जाए, तो इस प्रकार बनी नई संख्या में बाएं से दूसरे और दाएं से दूसरे अंकों का अंतर क्या होगा?

(1) 1
(2) **2** ✔
(3) 3
(4) 0

Q.31 Select the correct mirror image of the given figure when the mirror is placed at PQ as shown below.



दी गई आकृति की सही दर्पण छवि का चयन करें, जब दर्पण को नीचे दर्शाए अनुसार PQ पर रखा जाता है।

(1) 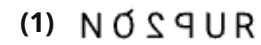
(2) 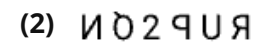
(3) 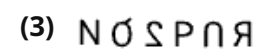
(4) 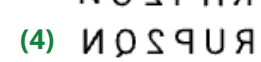 ✔

Q.32 TWXV is related to SVWU in a certain way based on the English alphabetical order. In the same way, HKLJ is related to GJKI. To which of the following is WZAY related to, following the same logic?
अंग्रेजी वर्णमाला क्रम के आधार पर TWXV एक निश्चित प्रकार से SVWU से संबंधित है। उसी प्रकार, HKLJ, GJKI से संबंधित है। उसी तर्क का अनुसरण करते हुए, WZAY निम्नलिखित में से किससे संबंधित है?

(1) **VYZX** ✔
(2) VZYH
(3) VXYX
(4) VYYX

QuickSarkari.com | WhatsApp Channel | Telegram: t.me/quick_sarkari

Q.33 If 'A' stands for '÷', 'B' stands for '×', 'C' stands for '+' and 'D' stands for '−', what will come in place of the question mark '?' in the following equation?
7 C 15 B 2 D 26 A 2 = ?
यदि 'A' का अर्थ '÷', 'B' का अर्थ '×', 'C' का अर्थ '+' और 'D' का अर्थ '−' है, तो निम्नलिखित समीकरण में प्रश्न चिह्न '?' के स्थान पर क्या आएगा?
7 C 15 B 2 D 26 A 2 = ?

(1) 26
(2) 25
(3) 24 ✔
(4) 22

Q.34 202 is related to 392 following a certain logic. Following the same logic, 152 is related to 342. To which of the following is 176 related, following the same logic?
(NOTE: Operations should be performed on the whole numbers, without breaking down the numbers into their constituent digits. E.g. 13 – Operations on 13 such as adding/subtracting/multiplying to 13 can be performed.
Breaking down 13 into 1 and 3 and then performing mathematical operations on 1 and 3 is not allowed.)
202 एक निश्चित तर्क के अनुसार 392 से संबंधित है। उसी तर्क का अनुसरण करते हुए, 152, 342 से संबंधित है। उसी तर्क का अनुसरण करते हुए, 176 निम्नलिखित में से किससे संबंधित है?
(नोट: संख्याओं को उनके घटक अंकों में तोड़े बिना, पूर्ण संख्याओं पर संक्रियाएँ की जानी चाहिए। उदाहरण के लिए 13 – 13 पर संक्रियाएँ जैसे 13 में जोड़ना/घटाना/गुणा करना आदि किया जा सकता है।
13 को 1 और 3 में तोड़कर फिर 1 और 3 पर गणितीय संक्रियाएँ करने की अनुमति नहीं है।)

(1) 356
(2) 366 ✔
(3) 386
(4) 376

Q.35 JJ 8 is related to LF -1 in a certain way. In the same way, UP 5 is related to WL -4. To which of the following is QQ 12 related, following the same logic?
JJ 8 एक निश्चित प्रकार से LF -1 से संबंधित है। उसी प्रकार, UP 5, WL -4 से संबंधित है। उसी तर्क का अनुसरण करते हुए, QQ 12 निम्नलिखित में से किससे संबंधित है?

(1) FR 2
(2) WR 1
(3) SM 3 ✔
(4) HJ 4

QuickSarkari.com | WhatsApp Channel | Telegram: t.me/quick_sarkari

Q.36 Select the set in which the numbers are related in the same way as are the numbers of the given sets.
(NOTE: Operations should be performed on the whole numbers, without breaking down the numbers into its constituent digits. E.g. 13 – Operations on 13 such as adding/subtracting/multiplying etc. to 13 can be performed.
Breaking down 13 into 1 and 3 and then performing mathematical operations on 1 and 3 is not allowed.)
(729, 631, 695)
(812, 714, 778)

उस समुच्चय का चयन करें जिसमें संख्याएँ उसी प्रकार संबंधित हैं जिस प्रकार दिए गए समुच्चयों की संख्याएँ संबंधित हैं।
(नोट: संख्याओं को उनके घटक अंकों में तोड़े बिना, पूर्ण संख्याओं पर संक्रियाएँ की जानी चाहिए। उदाहरण के लिए 13 – 13 पर संक्रियाएँ जैसे 13 में जोड़ना/घटाना/गुणा करना आदि किया जा सकता है।
13 को 1 और 3 में तोड़कर फिर 1 और 3 पर गणितीय संक्रियाएँ करने की अनुमति नहीं है।)
(729, 631, 695)
(812, 714, 778)

(1) (859, 741, 815)
(2) (986, 888, 952) ✔
(3) (773, 685, 719)
(4) (693, 585, 659)

Q.37 Below are given two sets of numbers. In each set of numbers, a certain mathematical operation on the first number results in the second number.
Similarly, certain mathematical operation on the second number results in the third number and so on.
Which of the given options follows the same set of operations as in question?
(NOTE – A two / three-digit number cannot be broken into individual digits for operations e.g. if 37 is followed by 10, the operation cannot be 3+7 as a two- digit number cannot be broken into individual digits.)
3 – 7 – 21 – 16 6 – 13 – 39 – 34

नीचे संख्याओं के दो समुच्चय दिए गए हैं। संख्याओं के प्रत्येक समुच्चय में, पहली संख्या पर एक निश्चित गणितीय संक्रिया करने से दूसरी संख्या प्राप्त होती है।
इसी प्रकार, दूसरी संख्या पर एक निश्चित गणितीय संक्रिया करने से तीसरी संख्या प्राप्त होती है और इसी तरह आगे भी। दिए गए विकल्पों में से कौन-सा विकल्प प्रश्न के समान संक्रियाओं के समुच्चय का अनुसरण करता है?
(नोट – संक्रियाओं के लिए दो/तीन अंकों की संख्या को अलग-अलग अंकों में नहीं तोड़ा जा सकता, उदाहरण के लिए यदि 37 के बाद 10 आता है, तो संक्रिया 3+7 नहीं हो सकती क्योंकि दो अंकों की संख्या को अलग-अलग अंकों में नहीं तोड़ा जा सकता।)
3 – 7 – 21 – 16 6 – 13 – 39 – 34

(1) 5 – 9 – 27 – 22
(2) 7 – 15 – 45 – 40 ✔
(3) 9 – 19 – 57 – 62
(4) 8 – 17 – 52 – 47

Q.38 Below are given two sets of numbers. In each set of numbers, a certain mathematical operation on the first number results in the second number.
Similarly, certain mathematical operation on the second number results in the third number and so on.
Which of the given options follows the same set of operations as in question?
(NOTE – A two / three-digit number cannot be broken into individual digits for operations e.g. if 37 is followed by 10, the operation cannot be 3+7 as a two- digit number cannot be broken into individual digits.)
12 – 31 – 65 – 45 14 – 37 – 77 – 57

नीचे संख्याओं के दो समुच्चय दिए गए हैं। संख्याओं के प्रत्येक समुच्चय में, पहली संख्या पर एक निश्चित गणितीय संक्रिया करने से दूसरी संख्या प्राप्त होती है।
इसी प्रकार, दूसरी संख्या पर एक निश्चित गणितीय संक्रिया करने से तीसरी संख्या प्राप्त होती है और इसी तरह आगे भी। दिए गए विकल्पों में से कौन-सा विकल्प प्रश्न के समान संक्रियाओं के समुच्चय का अनुसरण करता है?
(नोट – संक्रियाओं के लिए दो/तीन अंकों की संख्या को अलग-अलग अंकों में नहीं तोड़ा जा सकता, उदाहरण के लिए यदि 37 के बाद 10 आता है, तो संक्रिया 3+7 नहीं हो सकती क्योंकि दो अंकों की संख्या को अलग-अलग अंकों में नहीं तोड़ा जा सकता।)
12 – 31 – 65 – 45 14 – 37 – 77 – 57

(1) 11 – 28 – 59 – 39 ✔
(2) 15 – 40 – 77 – 57
(3) 8 – 19 – 41 – 61
(4) 13 – 34 – 71 – 49

Q.39 VP 10 is related to YS 21 in a certain way. In the same way, MG 15 is related to PJ 26. To which of the following is GA 9 related to following the same logic?

VP 10 एक निश्चित प्रकार से YS 21 से संबंधित है। उसी प्रकार, MG 15, PJ 26 से संबंधित है। उसी तर्क का अनुसरण करते हुए, GA 9 निम्नलिखित में से किससे संबंधित है?

(1) BP 21
(2) LE 22
(3) JD 20 ✔
(4) WP 20

Q.40 In the given English alphabetical series, one letter is missing. Identify the correct option.
Z, X, U, Q, ?

दी गई अंग्रेजी वर्णमाला श्रृंखला में एक अक्षर लुप्त है। सही विकल्प की पहचान करें।
Z, X, U, Q, ?

(1) O
(2) P
(3) L ✔
(4) M

Quick Sarkari

General Awareness

Q.41 Which was the first Act passed by the British Parliament to regulate the affairs of the East India Company in India, introducing the designation of 'Governor-General of Bengal'?

भारत में ईस्ट इंडिया कंपनी के मामलों को विनियमित करने के लिए ब्रिटिश संसद द्वारा पारित वह पहला अधिनियम कौन-सा था, जिसने 'बंगाल के गवर्नर-जनरल' का पद प्रारंभ किया?

(1) Regulating Act, 1773 / रेगुलेटिंग एक्ट, 1773 ✔

(2) Pitt's India Act, 1784 / पिट्स इंडिया एक्ट, 1784

(3) Charter Act of 1813 / 1813 का चार्टर एक्ट

(4) Government of India Act, 1858 / भारत सरकार अधिनियम, 1858

Q.42 Which social change in India was encouraged by reformers influenced by Western ideas during British rule?

ब्रिटिश शासन के दौरान पश्चिमी विचारों से प्रभावित सुधारकों द्वारा भारत में किस सामाजिक परिवर्तन को प्रोत्साहित किया गया था?

(1) Promotion of caste rigidity / जाति की कठोरता को बढ़ावा

(2) Revival of sati rituals / सती प्रथा का पुनरुद्धार

(3) Support for widow remarriage / विधवा पुनर्विवाह का समर्थन ✔

(4) Expansion of untouchability practices / अस्पृश्यता प्रथाओं का विस्तार

Q.43 What is the role of the World Trade Organisation (WTO) in an open economy?

एक खुली अर्थव्यवस्था में विश्व व्यापार संगठन (WTO) की क्या भूमिका है?

(1) To regulate and facilitate international trade agreements / अंतर्राष्ट्रीय व्यापार समझौतों को विनियमित और सुगम बनाना ✔

(2) To promote protectionism and restrict international trade / संरक्षणवाद को बढ़ावा देना और अंतर्राष्ट्रीय व्यापार को प्रतिबंधित करना

(3) To provide financial assistance to developing countries / विकासशील देशों को वित्तीय सहायता प्रदान करना

(4) To control exchange rates between different currencies / विभिन्न मुद्राओं के बीच विनिमय दरों को नियंत्रित करना

Q.44 Which major river system is fed by tributaries such as the Yamuna, Ghaghara, and Kosi?

यमुना, घाघरा और कोसी जैसी सहायक नदियाँ किस प्रमुख नदी तंत्र को जल प्रदान करती हैं?

(1) Peninsular River System / प्रायद्वीपीय नदी तंत्र

(2) Ganga River System / गंगा नदी तंत्र ✔

(3) Indus River System / सिंधु नदी तंत्र

(4) Brahmaputra River System / ब्रह्मपुत्र नदी तंत्र

Q.45 Which factor primarily causes most rivers of Peninsular India to have a seasonal flow?

प्रायद्वीपीय भारत की अधिकांश नदियों के मौसमी प्रवाह का मुख्य कारण कौन-सा कारक है?

(1) Continuous snowmelt throughout the year / पूरे वर्ष निरंतर हिम पिघलना

(2) Location in permanently humid regions / स्थायी रूप से आर्द्र क्षेत्रों में स्थिति

(3) Origin from glaciers in high mountains / ऊँचे पर्वतों के हिमनदों से उद्गम

(4) Dependence on monsoon rainfall / मानसूनी वर्षा पर निर्भरता ✔

Q.46 A Statutory Body is one that is established by an Act of Parliament or State Legislature. Which of the following is an example of a Statutory Body, making it a Non-Constitutional Body?
सांविधिक निकाय वह होता है जिसकी स्थापना संसद या राज्य विधानमंडल के अधिनियम द्वारा की जाती है। निम्नलिखित में से कौन-सा सांविधिक निकाय का उदाहरण है, जो इसे एक गैर-संवैधानिक निकाय बनाता है?

(1) Union Public Service Commission / संघ लोक सेवा आयोग
(2) National Commission for Scheduled Castes / राष्ट्रीय अनुसूचित जाति आयोग
(3) **National Human Rights Commission / राष्ट्रीय मानवाधिकार आयोग ✓**
(4) Election Commission of India / भारत निर्वाचन आयोग

Q.47 What is the primary reason for the occurrence of seasons on Earth?
पृथ्वी पर ऋतुओं के होने का प्राथमिक कारण क्या है?

(1) **Tilt of Earth's axis and its revolution around the Sun / पृथ्वी के अक्ष का झुकाव और सूर्य के चारों ओर इसकी परिक्रमा ✓**
(2) Earth's elliptical orbit around the Sun / सूर्य के चारों ओर पृथ्वी की दीर्घवृत्ताकार कक्षा
(3) Distance between Earth and the Moon / पृथ्वी और चंद्रमा के बीच की दूरी
(4) Variations in ocean currents / महासागरीय धाराओं में परिवर्तन

Q.48 Who played a major role in integrating over 500 princely states into independent India?
स्वतंत्र भारत में 500 से अधिक रियासतों के एकीकरण में किसने प्रमुख भूमिका निभाई?

(1) **Sardar Vallabhbhai Patel / सरदार वल्लभभाई पटेल ✓**
(2) Dr. B.R. Ambedkar / डॉ. बी.आर. अंबेडकर
(3) Jawaharlal Nehru / जवाहरलाल नेहरू
(4) Mahatma Gandhi / महात्मा गांधी

Q.49 The Anti-Defection Law, designed to prevent political defections, is contained in which Schedule of the Constitution?
राजनीतिक दल-बदल को रोकने के लिए बनाया गया दल-बदल विरोधी कानून संविधान की किस अनुसूची में निहित है?

(1) Twelfth Schedule / बारहवीं अनुसूची
(2) **Tenth Schedule / दसवीं अनुसूची ✓**
(3) Eleventh Schedule / ग्यारहवीं अनुसूची
(4) Ninth Schedule / नौवीं अनुसूची

Q.50 What is the effect on quantity and price when demand increases while supply remains constant?
जब आपूर्ति स्थिर रहती है और माँग बढ़ती है, तो मात्रा और कीमत पर क्या प्रभाव पड़ता है?

(1) Quantity decreases and price increases / मात्रा घटती है और कीमत बढ़ती है
(2) Quantity decreases and price decreases / मात्रा घटती है और कीमत घटती है
(3) Quantity increases and price decreases / मात्रा बढ़ती है और कीमत घटती है
(4) **Quantity increases and price increases / मात्रा बढ़ती है और कीमत बढ़ती है ✓**

Q.51 Which demographic indicator measures the number of live births per 1000 population in a year?
कौन-सा जनसांख्यिकीय संकेतक एक वर्ष में प्रति 1000 जनसंख्या पर जीवित जन्मों की संख्या को मापता है?

(1) Death Rate / मृत्यु दर
(2) **Birth Rate / जन्म दर ✓**
(3) Life Expectancy / जीवन प्रत्याशा
(4) Literacy Rate / साक्षरता दर

Q.52 In which direction from India is Bangladesh located?
बांग्लादेश भारत से किस दिशा में स्थित है?

(1) East / पूर्व ✔
(2) South-East / दक्षिण-पूर्व
(3) North-West / उत्तर-पश्चिम
(4) South-West / दक्षिण-पश्चिम

Q.53 Which organization was founded by Swami Dayanand Saraswati in 1875 to reform Hinduism?
हिंदू धर्म में सुधार के लिए 1875 में स्वामी दयानंद सरस्वती द्वारा किस संगठन की स्थापना की गई थी?

(1) Arya Samaj / आर्य समाज ✔
(2) Veda Samaj / वेद समाज
(3) Dharma Samaj / धर्म समाज
(4) Prarthana Samaj / प्रार्थना समाज

Q.54 What is the constitutional position of the Council of Ministers in relation to the State Legislature?
राज्य विधानमंडल के संबंध में मंत्रिपरिषद की संवैधानिक स्थिति क्या है?

(1) They are collectively responsible to the Legislative Council. / वे सामूहिक रूप से विधान परिषद के प्रति उत्तरदायी होते हैं।
(2) They are collectively responsible to the Legislative Assembly. / वे सामूहिक रूप से विधान सभा के प्रति उत्तरदायी होते हैं। ✔
(3) They are only responsible to the Chief Minister. / वे केवल मुख्यमंत्री के प्रति उत्तरदायी होते हैं।
(4) They are individually responsible to the Governor. / वे व्यक्तिगत रूप से राज्यपाल के प्रति उत्तरदायी होते हैं।

Q.55 Which tribal revolt of 1831 was led by Budhu Bhagat?
1831 के किस जनजातीय विद्रोह का नेतृत्व बुधु भगत ने किया था?

(1) Khasi Revolt / खासी विद्रोह
(2) Kol Uprising / कोल विद्रोह ✔
(3) Ramosi Rebellion / रामोसी विद्रोह
(4) Bhil Revolt / भील विद्रोह

Q.56 Which phase of Pradhan Mantri Gram Sadak Yojana (PMGSY) was launched in 2024 to boost rural infrastructure by connecting 25,000 newly eligible habitations?
25,000 नई पात्र बसावटों को जोड़कर ग्रामीण अवसंरचना को बढ़ावा देने के लिए 2024 में प्रधानमंत्री ग्राम सड़क योजना (PMGSY) का कौन-सा चरण शुरू किया गया था?

(1) Phase III / चरण III
(2) Phase VI / चरण VI
(3) Phase IV / चरण IV ✔
(4) Phase II / चरण II

Q.57 In which of the following ways does trade liberalisation benefit an open economy?
व्यापार उदारीकरण एक खुली अर्थव्यवस्था को निम्नलिखित में से किस प्रकार लाभ पहुँचाता है?

(1) By reducing exports to foreign markets / विदेशी बाजारों में निर्यात को कम करके
(2) By increasing government intervention in international trade / अंतर्राष्ट्रीय व्यापार में सरकारी हस्तक्षेप बढ़ाकर
(3) By imposing restrictions on imports / आयात पर प्रतिबंध लगाकर
(4) By promoting competition and efficiency in domestic industries / घरेलू उद्योगों में प्रतिस्पर्धा और दक्षता को बढ़ावा देकर ✔

Q.58 Under which Article of the Indian Constitution is the Right to Life and Personal Liberty guaranteed— a right that cannot be suspended even during an Emergency?

भारतीय संविधान के किस अनुच्छेद के अंतर्गत प्राण और दैहिक स्वतंत्रता का अधिकार प्रत्याभूत है— एक ऐसा अधिकार जिसे आपातकाल के दौरान भी निलंबित नहीं किया जा सकता?

(1) Article 19 / अनुच्छेद 19

(2) Article 14 / अनुच्छेद 14

(3) Article 22 / अनुच्छेद 22

(4) Article 21 / अनुच्छेद 21 ✔

Q.59 The Santhal Rebellion was led by which brothers?

संथाल विद्रोह का नेतृत्व किन भाइयों ने किया था?

(1) Sidhu and Kanhu / सिद्धू और कान्हू ✔

(2) Dula and Munda / दुला और मुंडा

(3) Birsa and Gaya / बिरसा और गया

(4) Tirot and Puru / तिरोत और पुरु

Q.60 The Poverty Line is generally determined in India by assessing the minimum desirable level of _____.

भारत में गरीबी रेखा का निर्धारण सामान्यतः _____ के न्यूनतम वांछनीय स्तर का आकलन करके किया जाता है।

(1) Ownership of luxury goods like cars and air conditioners. / कार और एयर कंडीशनर जैसी विलासिता की वस्तुओं के स्वामित्व

(2) Calorie requirement, along with basic expenditure. / बुनियादी व्यय के साथ-साथ कैलोरी की आवश्यकता ✔

(3) Investment in the stock market. / शेयर बाजार में निवेश

(4) The total number of family members employed in government jobs. / सरकारी नौकरियों में कार्यरत परिवार के सदस्यों की कुल संख्या

Q.61 Zinc reacts with Sulphuric acid to give:

जिंक, सल्फ्यूरिक अम्ल के साथ अभिक्रिया करके देता है:

(1) Zinc Sulphate and Hydrogen / जिंक सल्फेट और हाइड्रोजन ✔

(2) Zinc and Water / जिंक और जल

(3) Zinc Oxide and Hydrogen / जिंक ऑक्साइड और हाइड्रोजन

(4) Zinc Sulphate and Water / जिंक सल्फेट और जल

Q.62 Which launch vehicle successfully placed the CMS-03 communication satellite into orbit during its fifth operational mission on November 2, 2025?

2 नवंबर, 2025 को अपने पाँचवें परिचालन मिशन के दौरान किस प्रक्षेपण यान ने CMS-03 संचार उपग्रह को सफलतापूर्वक कक्षा में स्थापित किया?

(1) GLV MH III

(2) LVM3 ✔

(3) SLV-3

(4) PSLV-XL

Q.63 The emergency number deployed for disaster response in India is:

भारत में आपदा प्रतिक्रिया के लिए तैनात आपातकालीन नंबर है:

(1) 102

(2) 108

(3) 999

(4) 112 ✔

Q.64 Select the INCORRECT statement about Jainism.

जैन धर्म के बारे में गलत कथन का चयन करें।

(1) Jainism follows the strict rules of Ahimsa. / जैन धर्म अहिंसा के कठोर नियमों का पालन करता है।

(2) Followers of Mahavira are known as Jains. / महावीर के अनुयायियों को जैन कहा जाता है।

(3) Mahavira and his followers used only Sanskrit language for teaching and speeches. / महावीर और उनके अनुयायियों ने शिक्षा और प्रवचनों के लिए केवल संस्कृत भाषा का उपयोग किया। ✔

(4) Followers of Mahavira have to be absolutely honest. / महावीर के अनुयायियों को पूर्णतः ईमानदार होना होता है।

Q.65 Which of the Ministries introduced the Appropriation (No.4) Bill, 2025 in the Lok Sabha/Rajya Sabha?

लोकसभा/राज्यसभा में विनियोग (संख्या 4) विधेयक, 2025 किस मंत्रालय द्वारा प्रस्तुत किया गया था?

(1) Ministry of Labour and Employment / श्रम और रोजगार मंत्रालय

(2) Ministry of Finance / वित्त मंत्रालय ✔

(3) Ministry of Home Affairs / गृह मंत्रालय

(4) Ministry of Law and Justice / विधि और न्याय मंत्रालय

Q.66 The SI unit of electrical conductance is the siemens (S). It is equal to _____.

विद्युत चालकत्व का SI मात्रक सीमेंस (S) है। यह _____ के बराबर है।

(1) 0.01 Ω

(2) 1 Ω

(3) 1 Ω-1 ✔

(4) 100 Ω

Q.67 As of December 2025, how many total Ramsar Sites are there in India?

दिसंबर 2025 तक, भारत में कुल कितने रामसर स्थल हैं?

(1) 83

(2) 26

(3) 48

(4) 96 ✔

Q.68 When teams in a tug-of-war game pull with different amounts of force, the forces are _____.

जब रस्साकशी के खेल में टीमें अलग-अलग मात्रा के बल से खींचती हैं, तो बल _____ होते हैं।

(1) Frictional / घर्षणात्मक

(2) Equal / बराबर

(3) Balanced / संतुलित

(4) Unbalanced / असंतुलित ✔

Q.69 Jat-Jatin is a folk dance that depicts the romantic life and quarrels between men and women. Which state is it mainly from?

जट-जटिन एक लोक नृत्य है जो पुरुषों और महिलाओं के बीच प्रेमपूर्ण जीवन और झगड़ों को दर्शाता है। यह मुख्य रूप से किस राज्य का है?

(1) Himachal Pradesh / हिमाचल प्रदेश

(2) Uttarakhand / उत्तराखंड

(3) Bihar / बिहार ✔

(4) Assam / असम

Q.70 In July 2025, the Indian Coast Guard commenced construction of its first indigenously built Air Cushion Vehicle (ACV) at which of the following locations?

जुलाई 2025 में, भारतीय तटरक्षक बल ने निम्नलिखित में से किस स्थान पर अपने पहले स्वदेशी रूप से निर्मित एयर कुशन व्हीकल (ACV) का निर्माण शुरू किया?

(1) Kochi / कोच्चि

(2) Chennai / चेन्नई

(3) Visakhapatnam / विशाखापत्तनम

(4) **Goa / गोवा ✔**

Q.71 "Mahe", the first of eight Anti-Submarine Warfare Shallow Watercrafts delivered to the Indian Navy in October 2025, was built at which of the following locations?

अक्टूबर 2025 में भारतीय नौसेना को सौंपे गए आठ एंटी-सबमरीन वारफेयर शैलो वाटरक्राफ्ट में से पहला, "माहे", निम्नलिखित में से किस स्थान पर बनाया गया था?

(1) Dadra and Nagar Haveli / दादरा और नगर हवेली

(2) Andaman and Nicobar Islands / अंडमान और निकोबार द्वीपसमूह

(3) **Kochi / कोच्चि ✔**

(4) Lakshadweep / लक्षद्वीप

Q.72 With reference to the Mines and Minerals (Development and Regulation) Amendment Bill, 2025, which one of the following changes was introduced to strengthen funding support for mineral exploration and development?

खान और खनिज (विकास और विनियमन) संशोधन विधेयक, 2025 के संदर्भ में, खनिज अन्वेषण और विकास के लिए वित्तीय सहायता को सुदृढ़ करने हेतु निम्नलिखित में से कौन-सा परिवर्तन किया गया था?

(1) **Expansion of the National Mineral Exploration Trust to cover development work / विकास कार्यों को शामिल करने के लिए राष्ट्रीय खनिज अन्वेषण ट्रस्ट का विस्तार ✔**

(2) Reduction in mandatory royalty contributions to a central mineral trust / एक केंद्रीय खनिज ट्रस्ट में अनिवार्य रॉयल्टी अंशदान में कमी

(3) Limitation of trust operations to selected non-strategic minerals / ट्रस्ट के संचालन को चयनित गैर-रणनीतिक खनिजों तक सीमित करना

(4) Restriction of trust funding to preliminary exploration activities only / ट्रस्ट के वित्तपोषण को केवल प्रारंभिक अन्वेषण गतिविधियों तक प्रतिबंधित करना

Q.73 Where is Indian Navy's Survey Vessel Large (SVL) INS Ikshak based, after being commissioned there on November 6, 2025?

6 नवंबर, 2025 को कमीशन किए जाने के बाद, भारतीय नौसेना का सर्वे वेसल लार्ज (SVL) INS इक्षक कहाँ आधारित है?

(1) Andaman & Nicobar Command / अंडमान और निकोबार कमान

(2) Eastern Naval Command / पूर्वी नौसेना कमान

(3) **Southern Naval Command / दक्षिणी नौसेना कमान ✔**

(4) Western Naval Command / पश्चिमी नौसेना कमान

Q.74 Approved in July 2025, which policy aims to elevate India as a global sporting nation?
जुलाई 2025 में स्वीकृत, किस नीति का उद्देश्य भारत को एक वैश्विक खेल राष्ट्र के रूप में उभारना है?

(1) Panchayat Yuva Krida Aur Khel Abhiyan / पंचायत युवा क्रीड़ा और खेल अभियान
(2) **Khelo Bharat Niti / खेलो भारत नीति ✔**
(3) Khelo India Scheme / खेलो इंडिया योजना
(4) Target Olympic Podium Scheme / टारगेट ओलंपिक पोडियम योजना

Q.75 In 2025, Abhijit Banerjee was appointed as an advisor for which Indian state's Vision Board?
2025 में, अभिजीत बनर्जी को किस भारतीय राज्य के विज़न बोर्ड के सलाहकार के रूप में नियुक्त किया गया था?

(1) Tamil Nadu / तमिलनाडु
(2) Karnataka / कर्नाटक
(3) Gujarat / गुजरात
(4) **Telangana / तेलंगाना ✔**

Q.76 Which of the following national parks was declared as the 58th Tiger Reserve in March 2025?
निम्नलिखित में से किस राष्ट्रीय उद्यान को मार्च 2025 में 58वाँ टाइगर रिज़र्व घोषित किया गया था?

(1) **Madhav National Park, Madhya Pradesh / माधव राष्ट्रीय उद्यान, मध्य प्रदेश ✔**
(2) Ramgarh Vishdhari Tiger Reserve, Rajasthan / रामगढ़ विषधारी टाइगर रिज़र्व, राजस्थान
(3) Ratapani Tiger Reserve, Madhya Pradesh / रातापानी टाइगर रिज़र्व, मध्य प्रदेश
(4) Ranipur Tiger Reserve, Uttar Pradesh / रानीपुर टाइगर रिज़र्व, उत्तर प्रदेश

Q.77 In 2025, the International Day of Peace (September 21) was observed with which theme?
2025 में, अंतर्राष्ट्रीय शांति दिवस (21 सितंबर) किस विषय के साथ मनाया गया था?

(1) **Act Now for a Peaceful World / शांतिपूर्ण विश्व के लिए अभी कार्य करें ✔**
(2) Peace Through Dialogue / संवाद के माध्यम से शांति
(3) Building Bridges for Peace / शांति के लिए सेतु निर्माण
(4) Harmony and Cooperation / सद्भाव और सहयोग

Q.78 Which international personality was awarded the 2025 Nobel Peace Prize for the tireless work promoting democratic rights for the people of Venezuela?
वेनेजुएला के लोगों के लोकतांत्रिक अधिकारों को बढ़ावा देने के अथक कार्य के लिए किस अंतर्राष्ट्रीय व्यक्तित्व को 2025 का नोबेल शांति पुरस्कार प्रदान किया गया?

(1) **Maria Corina Machado / मारिया कोरिना मचाडो ✔**
(2) Michel H. Devoret / मिशेल एच. डेवोरेट
(3) Greta Thunberg / ग्रेटा थनबर्ग
(4) António Guterres / एंटोनियो गुटेरेस

Q.79 Which of the following Vedas is a source of Vedic sacrifices?
निम्नलिखित में से कौन-सा वेद वैदिक यज्ञों का स्रोत है?

(1) Samveda / सामवेद
(2) Atharvaveda / अथर्ववेद
(3) Rigveda / ऋग्वेद
(4) **Yajurveda / यजुर्वेद ✔**

Q.80 Who won the 2025 International Booker Prize?

2025 का अंतर्राष्ट्रीय बुकर पुरस्कार किसने जीता?

(1) Arundhati Roy / अरुंधति रॉय

(2) Aruna Roy / अरुणा रॉय

(3) Amish Tripathi / अमीश त्रिपाठी

(4) Banu Mushtaq and Deepa Bhasthi / बानू मुश्ताक और दीपा भस्थी ✔

Arithmetical and Numerical Ability

Q.81 The population of a village was 170000. It increased by 15% in the first year and increased by 20% in the second year. Its population after two years is _____.

एक गाँव की जनसंख्या 170000 थी। पहले वर्ष में इसमें 15% की वृद्धि हुई और दूसरे वर्ष में 20% की वृद्धि हुई। दो वर्ष बाद इसकी जनसंख्या _____ है।

(1) 229500

(2) 195500

(3) 204000

(4) 234600 ✔

Q.82 The HCF of two numbers is 116, and their LCM is 696. If one of the numbers is 348, find the other number.

दो संख्याओं का महत्तम समापवर्तक (HCF) 116 है, और उनका लघुत्तम समापवर्त्य (LCM) 696 है। यदि उनमें से एक संख्या 348 है, तो दूसरी संख्या ज्ञात कीजिए।

(1) 232 ✔

(2) 221

(3) 244

(4) 348

Q.83 A student scores 80 marks in a test weighted at 40% and 90 marks in another test weighted at 60%. What is the weighted average score?

एक छात्र 40% भार वाली एक परीक्षा में 80 अंक और 60% भार वाली दूसरी परीक्षा में 90 अंक प्राप्त करता है। भारित औसत अंक क्या है?

(1) 82

(2) 84

(3) 89

(4) 86 ✔

Q.84 Find the simple interest (in ₹) on ₹3,000 as a sum borrowed at 6% per year rate of interest for 3 years.

3 वर्ष के लिए 6% वार्षिक ब्याज दर पर उधार ली गई ₹3,000 की राशि पर साधारण ब्याज (₹ में) ज्ञात कीजिए।

(1) 580

(2) 540 ✔

(3) 480

(4) 500

Q.85 The bar graph below shows the number of books sold by a bookstore from Monday to Friday. What is the average number of books sold per day from Monday to Friday?

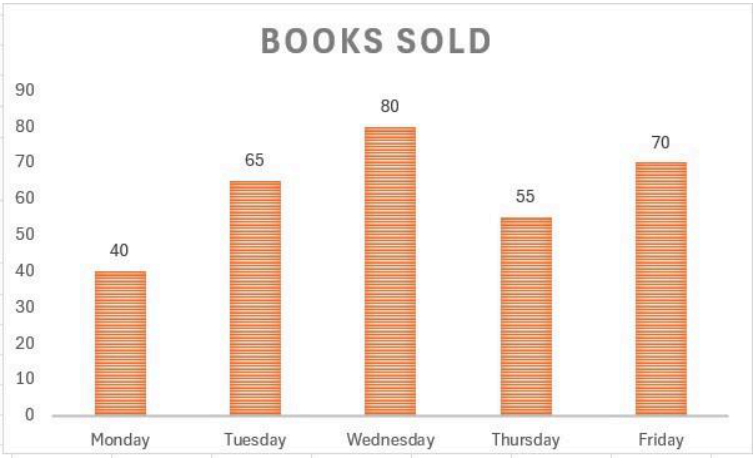

नीचे दिया गया दंड आलेख सोमवार से शुक्रवार तक एक पुस्तक विक्रेता द्वारा बेची गई पुस्तकों की संख्या को दर्शाता है। सोमवार से शुक्रवार तक प्रतिदिन बेची गई पुस्तकों की औसत संख्या कितनी है?

(1) 65
(2) 70
(3) 62 ✔
(4) 68

Q.86 Shamik invested some money in a bank at 9% per annum rate of interest.
What would be the corresponding simple interest (in ₹) if after 2 years, Shamik got ₹209 as compound interest, considering annual compounding?

शमिक ने 9% वार्षिक ब्याज दर पर एक बैंक में कुछ धनराशि निवेश की।
यदि वार्षिक रूप से संयोजित होने पर, 2 वर्ष बाद शमिक को चक्रवृद्धि ब्याज के रूप में ₹209 प्राप्त हुए, तो संगत साधारण ब्याज (₹ में) कितना होगा?

(1) 200 ✔
(2) 195
(3) 215
(4) 210

Q.87 A student has an average score of 78 marks across 5 subjects. If the student scored 84, 65, 74, and 72 in four of the subjects, determine the score in the fifth subject.

एक छात्र के 5 विषयों में औसत अंक 78 हैं। यदि छात्र ने चार विषयों में 84, 65, 74 और 72 अंक प्राप्त किए, तो पाँचवें विषय में प्राप्त अंक ज्ञात कीजिए।

(1) 93
(2) 90
(3) 95 ✔
(4) 85

QuickSarkari.com | WhatsApp Channel | Telegram: t.me/quick_sarkari

Q.88 In a test, B got 52 marks while A got 80 marks, out of 120 maximum marks.
What percentage of A's marks was B's marks?
एक परीक्षा में, 120 अधिकतम अंकों में से B को 52 अंक मिले जबकि A को 80 अंक मिले।
B के अंक, A के अंकों का कितना प्रतिशत थे?

(1) 65% ✔
(2) 66.67%
(3) 120%
(4) 153.85%

Q.89 Find a in the following expression:
[8/9 ÷ 5/12 × a] − 2/3 = (5 − 7/9) of 12/15
निम्नलिखित व्यंजक में a का मान ज्ञात कीजिए:
[8/9 ÷ 5/12 × a] − 2/3 = (5 − 7/9) का 12/15

(1) 91/48 ✔
(2) 30/17
(3) −31/19
(4) −32/23

Quick Sarkari

Q.90 The following pie charts show the percentage distribution of employees at worker level and officer level in 5 different cement industries: A, B, C, D and E of a state. The total number of employees at the worker level is 75,000 and at the officer level is 28,000. Find the total number of employees at worker and officer level in industry D.

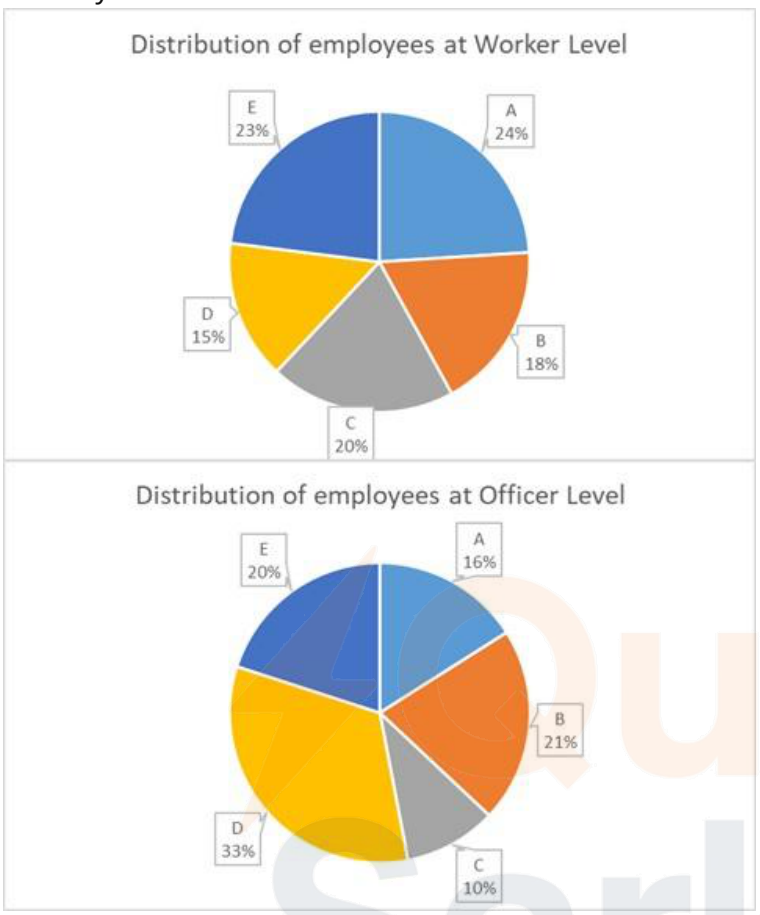

निम्नलिखित पाई चार्ट एक राज्य के 5 विभिन्न सीमेंट उद्योगों: A, B, C, D और E में कर्मचारी स्तर और अधिकारी स्तर के कर्मचारियों के प्रतिशत वितरण को दर्शाते हैं। कर्मचारी स्तर पर कर्मचारियों की कुल संख्या 75,000 है और अधिकारी स्तर पर 28,000 है। उद्योग D में कर्मचारी और अधिकारी स्तर पर कर्मचारियों की कुल संख्या ज्ञात कीजिए।

(1) 20,490 ✔

(2) 16,850

(3) 19,380

(4) 22,850

Q.91 Among the following, find the number which is coprime to 1296.

निम्नलिखित में से वह संख्या ज्ञात कीजिए जो 1296 के साथ सह-अभाज्य है।

(1) $22^2 + 14^2$

(2) (250 × 2) + 29 ✔

(3) $2^4 + 3^4 + 1^4$

(4) 1521

Q.92 Simplify:
1/2 × [24 ÷ {5 + (8 ÷ 2) − 3}] + 4
सरल कीजिए:
1/2 × [24 ÷ {5 + (8 ÷ 2) − 3}] + 4

(1) 6 ✔
(2) 4
(3) 0
(4) 10

Q.93 In a company, the average salary of the senior employees is ₹60,000 per month, and the average salary of the junior employees is ₹45,000 per month. The average salary of all employees is ₹54,000 per month. If there are 120 employees in total, find the number of senior employees in the company.
एक कंपनी में, वरिष्ठ कर्मचारियों का औसत वेतन ₹60,000 प्रति माह है, और कनिष्ठ कर्मचारियों का औसत वेतन ₹45,000 प्रति माह है। सभी कर्मचारियों का औसत वेतन ₹54,000 प्रति माह है। यदि कुल 120 कर्मचारी हैं, तो कंपनी में वरिष्ठ कर्मचारियों की संख्या ज्ञात कीजिए।

(1) 56
(2) 72 ✔
(3) 60
(4) 68

Q.94 Which is the smallest positive number that should be subtracted from 83 to make it divisible by 4?
83 में से वह सबसे छोटी धनात्मक संख्या कौन-सी है जिसे घटाने पर यह 4 से विभाज्य हो जाए?

(1) 1
(2) 7
(3) 3 ✔
(4) 2

Q.95 Simplify: $(\sqrt[3]{1728})/(\sqrt[4]{4096}) \times 4/36 \times 120$
सरल कीजिए: $(\sqrt[3]{1728})/(\sqrt[4]{4096}) \times 4/36 \times 120$

(1) 20 ✔
(2) 30
(3) 26
(4) 25

Q.96 Convert the mixed recurring decimal 0.5181818... into its vulgar fraction form.
मिश्रित आवर्ती दशमलव 0.5181818... को उसके साधारण भिन्न के रूप में बदलिए।

(1) 7/11
(2) 57/110 ✔
(3) 26/101
(4) 3/7

Q.97 Mahesh had ₹1,312 with him. He divided this amount between his sons, Vijay and Ajay, and asked them to invest their respective shares at a rate of 5% per annum, compounded annually. Vijay invested his share for 19 years, and Ajay invested his share for 20 years. It was observed that both received equal amounts at the end of their respective periods. How much (in ₹) did Mahesh give to Ajay?

महेश के पास ₹1,312 थे। उसने यह राशि अपने पुत्रों, विजय और अजय के बीच बाँट दी और उन्हें अपने-अपने हिस्से को 5% वार्षिक दर पर, वार्षिक रूप से चक्रवृद्धि होने वाले ब्याज पर निवेश करने को कहा। विजय ने अपना हिस्सा 19 वर्षों के लिए निवेश किया, और अजय ने अपना हिस्सा 20 वर्षों के लिए निवेश किया। यह देखा गया कि दोनों को अपनी-अपनी अवधि के अंत में बराबर राशि प्राप्त हुई। महेश ने अजय को कितनी राशि (₹ में) दी?

(1) 640 ✔
(2) 672
(3) 772
(4) 490

Q.98 The HCF of two numbers is 12 and their LCM is 180. If one of the numbers is 36, what is the other number?

दो संख्याओं का महत्तम समापवर्तक (HCF) 12 है और उनका लघुत्तम समापवर्त्य (LCM) 180 है। यदि उनमें से एक संख्या 36 है, तो दूसरी संख्या क्या है?

(1) 56
(2) 66
(3) 50
(4) 60 ✔

Q.99 Two types of tea costing ₹120 per kg and ₹180 per kg are mixed in the ratio 1 : 2; what is the cost price per kilogram of the mixture?

₹120 प्रति kg और ₹180 प्रति kg मूल्य वाली दो प्रकार की चाय को 1 : 2 के अनुपात में मिलाया जाता है; मिश्रण का प्रति किलोग्राम क्रय मूल्य क्या है?

(1) ₹150/kg
(2) ₹160/kg ✔
(3) ₹170/kg
(4) ₹166/kg

Q.100 Simplify:

$\sqrt[3]{}(27 \times 8) + 2^3$.

सरल कीजिए:

$\sqrt[3]{}(27 \times 8) + 2^3$.

(1) 8
(2) 14 ✔
(3) 12
(4) 10

Q.101 The marked price of a motorbike is ₹1,80,000. The company gives a discount of 3% on ₹1,00,000 and 4% discount on the remaining amount. Find the selling price of the bike.

एक मोटरबाइक का अंकित मूल्य ₹1,80,000 है। कंपनी ₹1,00,000 पर 3% की छूट और शेष राशि पर 4% की छूट देती है। बाइक का विक्रय मूल्य ज्ञात कीजिए।

(1) ₹1,76,800

(2) **₹1,73,800 ✔**

(3) ₹1,77,000

(4) ₹1,75,250

Q.102 A hemispherical bowl is composed of metal that is 1 cm thick and has an internal radius of 12 cm. Determine the bowl's exterior curved surface area. (given that π = 3.14)

एक अर्धगोलाकार कटोरा 1 cm मोटी धातु से बना है और इसकी आंतरिक त्रिज्या 12 cm है। कटोरे का बाहरी वक्र पृष्ठीय क्षेत्रफल ज्ञात कीजिए। (दिया गया है कि π = 3.14)

(1) 1052.23 cm^2

(2) 1056.48 cm^2

(3) 1058.56 cm^2

(4) **1061.32 cm^2 ✔**

Q.103 Divide ₹35,000 into three parts in such a way that half of the first part, one- fourth of the second part and one-eighth of the third part are equal. What is the value (in ₹) of the first part?

₹35,000 को तीन भागों में इस प्रकार विभाजित कीजिए कि पहले भाग का आधा, दूसरे भाग का एक-चौथाई और तीसरे भाग का एक-आठवाँ भाग बराबर हों। पहले भाग का मान (₹ में) क्या है?

(1) 5,300

(2) 4,800

(3) **5,000 ✔**

(4) 5,100

Q.104 Two runners, P and Q, start at the same point on a circular track of length 1000 m and run in the same direction with speeds 10 m/s and 6 m/s. Find the time of their first meeting after the start and how many times will they meet in 15 minutes?

दो धावक, P और Q, 1000 m लंबाई वाले एक वृत्ताकार ट्रैक पर एक ही बिंदु से 10 m/s और 6 m/s की चाल से एक ही दिशा में दौड़ना शुरू करते हैं। प्रारंभ के बाद उनकी पहली भेंट का समय ज्ञात कीजिए और 15 मिनट में वे कितनी बार मिलेंगे?

(1) **250 seconds, 3 times / 250 सेकंड, 3 बार ✔**

(2) 325 seconds, 5 times / 325 सेकंड, 5 बार

(3) 300 seconds, 2 times / 300 सेकंड, 2 बार

(4) 225 seconds, 6 times / 225 सेकंड, 6 बार

Q.105 P and Q can do a piece of work in 40 and 50 days, respectively. They begin the work together, but P leaves after some days and Q finishes the remaining work in 32 days. After how many days did P leave?

P और Q किसी कार्य को क्रमशः 40 और 50 दिनों में कर सकते हैं। वे एक साथ कार्य शुरू करते हैं, लेकिन P कुछ दिनों बाद कार्य छोड़ देता है और Q शेष कार्य को 32 दिनों में पूरा करता है। P ने कितने दिनों बाद कार्य छोड़ा?

(1) 7 days / 7 दिन

(2) 10 days / 10 दिन

(3) **8 days / 8 दिन ✔**

(4) 9 days / 9 दिन

Q.106 A car makes a round trip between two cities. It travels from the first city to the second at a steady speed of 60 km/h and returns immediately along the same route at 40 km/h. What is the average speed in meters per second for the entire round trip?

एक कार दो शहरों के बीच आने-जाने की यात्रा करती है। यह पहले शहर से दूसरे शहर तक 60 km/h की स्थिर चाल से यात्रा करती है और तुरंत उसी मार्ग से 40 km/h की चाल से लौटती है। पूरी आने-जाने की यात्रा के लिए मीटर प्रति सेकंड में औसत चाल क्या है?

(1) 14.5 m/s

(2) 48/11 m/s

(3) **40/3 m/s** ✔

(4) 12 m/s

Q.107 A farmer has a triangular field with a base of 42 meters and a height of 32 meters. If the cost of cultivating the field is ₹15.6 per square meter, what will be the total cost of cultivation?

एक किसान के पास एक त्रिभुजाकार खेत है जिसका आधार 42 मीटर और ऊँचाई 32 मीटर है। यदि खेत में खेती करने की लागत ₹15.6 प्रति वर्ग मीटर है, तो खेती की कुल लागत कितनी होगी?

(1) ₹10,488.60

(2) ₹10,445.40

(3) **₹10,483.20** ✔

(4) ₹10,474.28

Q.108 The volume of a cuboid is thrice that of a cube. If the dimensions of the cuboid are 54 cm, 36 cm and 9 cm, then find the lateral surface area of the cube.

एक घनाभ का आयतन एक घन के आयतन का तीन गुना है। यदि घनाभ की विमाएँ 54 cm, 36 cm और 9 cm हैं, तो घन का पार्श्व पृष्ठीय क्षेत्रफल ज्ञात कीजिए।

(1) 1269 cm^2

(2) **1296 cm^2** ✔

(3) 1692 cm^2

(4) 1962 cm^2

Q.109 A and B complete a work in 6 days. If A alone can do it in 7 days, then B alone can do it half of the same work in _____(days).

A और B किसी कार्य को 6 दिनों में पूरा करते हैं। यदि A अकेले इसे 7 दिनों में कर सकता है, तो B अकेले उसी कार्य का आधा भाग _____(दिनों) में कर सकता है।

(1) 63

(2) **21** ✔

(3) 84

(4) 42

Q.110 A cylindrical water tank has a radius of 14 cm and a height of 40 cm. Using π = 22/7 , calculate the volume of the tank.

14 cm त्रिज्या और 40 cm ऊँचाई वाली एक बेलनाकार पानी की टंकी है।

π = 22/7 का उपयोग करके, टंकी का आयतन ज्ञात कीजिए।

(1) 23,620 cm^3

(2) 23,564 cm^3

(3) 24,200 cm^3

(4) **24,640 cm^3** ✔

Q.111 A cuboid-shaped storage box measures 30 cm in length, 20 cm in width, and 20 cm in height. Find the number of books that can fit within the box, each with a volume of 300 cm^3.

एक घनाभाकार भंडारण बॉक्स की लंबाई 30 cm, चौड़ाई 20 cm और ऊँचाई 20 cm है। बॉक्स में रखी जा सकने वाली पुस्तकों की संख्या ज्ञात कीजिए, जिनमें से प्रत्येक का आयतन 300 cm^3 है।

(1) 32
(2) **40** ✔
(3) 36
(4) 20

Q.112 To prepare 8 glasses of lemonade, 376 g of sugar is required. How much sugar will be needed to make 15 glasses of lemonade?

नींबू पानी के 8 गिलास तैयार करने के लिए 376 g चीनी की आवश्यकता होती है। नींबू पानी के 15 गिलास बनाने के लिए कितनी चीनी की आवश्यकता होगी?

(1) **705 g** ✔
(2) 752 g
(3) 728 g
(4) 658 g

Q.113 If both the radius and height of a right circular cone are increased by 15%, find the percentage of volume increased. (Rounded off to two decimal places.)

यदि एक लंब वृत्तीय शंकु की त्रिज्या और ऊँचाई दोनों में 15% की वृद्धि की जाती है, तो आयतन में हुई प्रतिशत वृद्धि ज्ञात कीजिए। (दो दशमलव स्थानों तक पूर्णांकित)

(1) 50.02%
(2) **52.09%** ✔
(3) 59.02%
(4) 50.09%

Q.114 What is the third proportional to 16 and 24?

16 और 24 का तृतीय समानुपाती क्या है?

(1) 38
(2) 12
(3) **36** ✔
(4) 40

Q.115 A rectangular field has a perimeter of 100 meters. If the length is 10 meters more than the breadth, find the area of the field.

एक आयताकार खेत का परिमाप 100 मीटर है। यदि लंबाई, चौड़ाई से 10 मीटर अधिक है, तो खेत का क्षेत्रफल ज्ञात कीजिए।

(1) 478 m^2
(2) 420 m^2
(3) 556 m^2
(4) **600 m^2** ✔

Q.116 A and B invested in a business in the ratio 5:7. If the total profit is ₹45,000 and 3% of the profit is donated to an old-age home, then what is B's share?

A और B ने एक व्यवसाय में 5:7 के अनुपात में निवेश किया। यदि कुल लाभ ₹45,000 है और लाभ का 3% एक वृद्धाश्रम को दान कर दिया जाता है, तो B का हिस्सा क्या है?

(1) ₹25,462.50 ✔

(2) ₹25,554.50

(3) ₹25,280.50

(4) ₹25,567.50

Q.117 The list price of a home theatre is ₹40,000. It is sold to a retailer after two successive discounts of 4% and 10%. The retailer wants to earn a profit of 50% on his cost price after allowing a 46% discount (on its new list price) to the customer. At what price should he list the home theatre?

एक होम थिएटर का सूची मूल्य ₹40,000 है। इसे 4% और 10% की दो क्रमिक छूटों के बाद एक खुदरा विक्रेता को बेचा जाता है। खुदरा विक्रेता ग्राहक को (इसके नए सूची मूल्य पर) 46% की छूट देने के बाद अपने क्रय मूल्य पर 50% लाभ अर्जित करना चाहता है। उसे होम थिएटर का सूची मूल्य कितना रखना चाहिए?

(1) ₹96,179

(2) ₹95,827

(3) ₹96,103

(4) ₹96,000 ✔

Q.118 The slant height of a cone is 13 cm and its radius is 5 cm. Find the volume of the cone.

एक शंकु की तिर्यक ऊँचाई 13 cm है और इसकी त्रिज्या 5 cm है। शंकु का आयतन ज्ञात कीजिए।

(1) 100π cm^3 ✔

(2) 112π cm^3

(3) 88π cm^3

(4) 78π cm^3

Q.119 A man bought an article for ₹1650 and sold it at 16% loss. Find the selling price.

एक व्यक्ति ने एक वस्तु ₹1650 में खरीदी और उसे 16% हानि पर बेच दिया। विक्रय मूल्य ज्ञात कीजिए।

(1) ₹1324

(2) ₹1360

(3) ₹1386 ✔

(4) ₹1392

Q.120 A shopkeeper bought six identical mobile phones for a total cost of ₹75,000, and sold two of them for a total of ₹50,000. Find the percentage of gain made in the sale of these two mobiles.

एक दुकानदार ने छह एकसमान मोबाइल फोन कुल ₹75,000 की लागत पर खरीदे, और उनमें से दो को कुल ₹50,000 में बेच दिया। इन दो मोबाइलों की बिक्री पर प्राप्त लाभ प्रतिशत ज्ञात कीजिए।

(1) 101%

(2) 98%

(3) 97%

(4) 100% ✔

QuickSarkari.com | WhatsApp Channel | Telegram: t.me/quick_sarkari

English Language and Comprehension

Q.121 Choose the option that best replaces the underlined text.
After years of hard work, she achieved financial freedom and the state of being able to pay one's debts.

(1) liberty
(2) security
(3) affluence
(4) **solvency ✔**

Q.122 Select a specific word from the options below to replace the underlined group of words in the following sentence.
His explanation was intentionally unclear and could be interpreted in more than one way.

(1) Cryptic
(2) Vague
(3) Obscure
(4) **Ambiguous ✔**

Q.123 Select a specific word from the options below to replace the underlined group of words in the following sentence.
She has a fear of being in closed or crowded spaces.

(1) hydrophobia
(2) acrophobia
(3) agoraphobia
(4) **claustrophobia ✔**

Q.124 Select the most appropriate option to fill in the blank.
The _____ weather forced everyone to stay indoors.

(1) enjoyable
(2) pleasant
(3) **stormy ✔**
(4) refreshing

Q.125 Choose the option that expresses the given sentence in passive voice.
The authorities are implementing stricter regulations to curb environmental pollution.

(1) **Stricter regulations are being implemented by the authorities to curb environmental pollution. ✔**
(2) Stricter regulations are implemented by the authorities to curb environmental pollution.
(3) Stricter regulations were implemented by the authorities to curb environmental pollution.
(4) Stricter regulations have been implemented by the authorities to curb environmental pollution.

Q.126 In the debate competition, Anika responded to every question so _____ that even the judges were impressed by her clarity and confidence, despite facing challenging and unexpected counterpoints.

(1) **confidently ✔**
(2) hesitantly
(3) nervously
(4) ambiguously

Q.127 Fill in the blank with the most appropriate option.
The meeting started _____ than expected because everyone arrived on time.

(1) earlier ✔
(2) lately
(3) eventually
(4) soon

Q.128 Choose the most suitable option to complete the sentence meaningfully.
The rare painting, hidden in the archives for decades, was finally found only _____ a careful and detailed search by the museum staff.

(1) through ✔
(2) over
(3) beneath
(4) across

Q.129 In the given question, a sentence is divided into different segments and the first segment (S1) is fixed. Choose the most appropriate order from the options given which best rearranges the remaining segments to form a coherent sentence.
S1: Although the expedition to the Arctic
P: the team of scientists managed
Q: to collect valuable data about the melting
R: ice sheets and their impact on rising sea levels
S: was extremely perilous and exhausting,

(1) SPQR ✔
(2) RPSQ
(3) QPRS
(4) PQSR

Q.130 Choose the option that best replaces the underlined text.
The teacher appreciated Neha's ability to quickly understand and learn things.

(1) wisdom
(2) intelligence
(3) knowledge
(4) aptitude ✔

Q.131 Choose the most suitable option to complete the sentence meaningfully.
Her recent success can be attributed ____ her consistent hard work and dedication.

(1) to ✔
(2) with
(3) for
(4) by

Q.132 The sentences below, when arranged coherently, form a paragraph about a historical event. The first and last sentences are fixed. Choose the option that presents the correct sequence of the middle sentences (A, B, C, D) to complete the paragraph.
Fixed First Sentence: The Industrial Revolution marked a profound shift from agrarian societies to industrialized ones.
(A) This mechanization drastically increased production in textiles and other goods.
(B) It began in Britain in the late 18th century with the invention of steam power and new machinery.
(C) Consequently, people moved from rural areas to cities in search of factory work.
(D) These technological changes required new forms of labor and organization.
Fixed Last Sentence: Thus, the social and economic landscape of the world was forever changed.

(1) DBCA
(2) ACBD
(3) CADB
(4) BADC ✔

Q.133 The parts labeled (OPQRST) form a single sentence when rearranged correctly. Choose the correct sequence to make a meaningful sentence.
O) Although the novel was criticized P) for its unconventional narrative structure Q) it has since been recognized R) as a groundbreaking work S) that influenced a generation of writers T) upon its initial release,

(1) QRSOPT
(2) OTPRQS
(3) OPTQRS ✔
(4) OPQRST

Q.134 In the given question, a statement divided into different segments is given.
Rearrange all the segments to form a coherent statement.
Of governing people (P) / Politics is the art (Q) / And solving issues (R) / And shape its future (S) / That affect a nation (T)

(1) PQTRS
(2) QTSRP
(3) PRQTS
(4) QPRTS ✔

Q.135 In the following question, you are required to fill in the blank by choosing the word that best completes the given sentence.
The ancient scrolls, though long forgotten in the dusty basement, were brought to light only _____ meticulous cross-checking of old records, catalogues, and handwritten notes by the dedicated historian.

(1) through ✔
(2) across
(3) beneath
(4) over

Q.136 In the given question, a statement divided into different segments is given.
Rearrange all the segments to form a coherent statement.
Was covered with cream (P) / The birthday cake (Q) / And colorful sprinkles (R) / And tasted delicious (S) / Shaped like stars (T)

(1) QRSTP
(2) QPRTS ✔
(3) TPQRS
(4) TSQRP

Q.137 Select a specific word from the options below to replace the underlined group of words in the following sentence.
Using "the Crown" to refer to the king or queen and the government of a country is an example of a common figure of speech.

(1) Metonymy ✔
(2) Euphemism
(3) Allegory
(4) Synecdoche

Q.138 The sentences below form a coherent argument when ordered correctly.
The first sentence introduces the topic, and the last sentence concludes it. Choose the option that shows the logical flow of the middle sentences (A, B, C, D).
Fixed First Sentence: Many educators argue that reading physical books is superior to reading on digital devices.
(A) They contend that this "deep reading" fosters better comprehension and retention.
(B) This finding is explained by the fact that screens are often associated with multitasking and quick browsing, which hinder deep engagement.
(C) Studies support this view, showing that readers using e-readers tend to have lower recall of narrative sequence.
(D) A key reason is that paper books offer fewer distractions, allowing for greater focus.
Fixed Last Sentence: Therefore, for sustained learning, the traditional medium might still hold an advantage.

(1) DACB ✔
(2) ADCB
(3) DABC
(4) CBDA

Q.139 Select a specific word from the options below to replace the underlined group of words in the following sentence.
The soldier showed great courage and ability in the face of danger during the rescue mission.

(1) skill
(2) heroism ✔
(3) audacity
(4) fortitude

Q.140 Choose the option which best replaces the underlined text.
The teacher gave a long speech as a/an formal expression of praise for the retiring principal.

(1) preamble
(2) **eulogy ✔**
(3) accusation
(4) monologue

Q.141 Select the most appropriate option that rectifies the underlined incorrectly spelt word in the given sentence.
The aluring aroma of the blooming jasmine filled the night air, making her feel light-headed with delight.

(1) alluoring
(2) alloring
(3) allyoring
(4) **alluring ✔**

Q.142 Choose the option that correctly replaces the underlined misspelt word in the paragraph below.
The report stresses the need for transprency in governmental operations so that citizens can hold public institutions accountable.

(1) transperancy
(2) transparancy
(3) transperency
(4) **transparency ✔**

Q.143 Select the most appropriate passive voice of the sentence given below.
Geeta opened the purple box.

(1) The purple box was being opened by Gita.
(2) **The purple box was opened by Gita. ✔**
(3) The purple box is opened by Gita.
(4) The purple box had been opened by Gita.

Q.144 Select the INCORRECTLY spelt word.

(1) Perpetuate
(2) **Exhilerate ✔**
(3) Accumulate
(4) Inoculate

Q.145 Choose the correct indirect speech for the following sentence:
They said, “We are cooking pasta.”

(1) They said that they cook pasta.
(2) **They said that they were cooking pasta. ✔**
(3) They said that pasta was being cooked.
(4) They said that they would cook pasta.

Q.146 One of the four words in bold in the given sentence is incorrectly spelt.
Select the INCORRECTLY spelt word.
The museum's new exhibition features a breathtaking collection of renaissance paintings, attracting art enthousiasts from around the world.

(1) exhibition
(2) breathtaking
(3) enthousiasts ✔
(4) renaissance

Q.147 Select the most appropriate passive voice for the sentence given below.
The mason builds the house using brick and cement.

(1) The house was built by the mason using brick and cement.
(2) The house is built by the mason using brick and cement. ✔
(3) The house has been built by the mason using brick and cement.
(4) The house is been built by the mason using brick and cement.

Q.148 From the options given below, choose the sentence which is correctly written in passive voice.

(1) The documents are being review by the committee throughout the evening.
(2) The documents were been reviewed by the committee throughout the evening.
(3) The documents were being review by the committee throughout the evening.
(4) The documents were being reviewed by the committee throughout the evening. ✔

Q.149 Select the misspelt word from the sentence given below.
The vivid painting was remarkable for its colourful depiction and creative use of imagary.

(1) depiction
(2) vivid
(3) imagary ✔
(4) creative

Q.150 Select the option that expresses the given sentence in passive voice.
The manager will review the report.

(1) The report has been reviewed by the manager.
(2) The report had been reviewed by the manager.
(3) The report will have been reviewed by the manager.
(4) The report will be reviewed by the manager. ✔

Quick Sarkari

Q.151

Read the passage carefully and answer the questions that follow.
A bird flying south for the winter is not simply wandering; it is following a map written in its genes and the sky. This incredible journey, known as migration, is governed by a set of internal and external signals. The primary driver is the change in day length, which triggers hormonal changes in the birds, urging them to prepare for the long flight. They enter a state of hyperphagia, consuming vast amounts of food to store fat, their fuel for the journey. To navigate, birds use a sophisticated toolkit: the sun by day, the stars by night, and even the Earth's magnetic field, which they may sense through specialized proteins in their eyes. While the sight of a flock in perfect V-formation is majestic, it is also practical, as it reduces wind resistance and conserves energy for each bird except the leader. Migration is a testament not to random travel, but to precise, ancient biological programming.

According to the passage, which is NOT stated as a method birds use for navigation?

(1) Following the scent trails of other birds ✔

(2) Using the position of the sun

(3) Reading the stars at night

(4) Sensing the Earth's magnetic field

Q.152

Read the passage carefully and answer the questions that follow.
A bird flying south for the winter is not simply wandering; it is following a map written in its genes and the sky. This incredible journey, known as migration, is governed by a set of internal and external signals. The primary driver is the change in day length, which triggers hormonal changes in the birds, urging them to prepare for the long flight. They enter a state of hyperphagia, consuming vast amounts of food to store fat, their fuel for the journey. To navigate, birds use a sophisticated toolkit: the sun by day, the stars by night, and even the Earth's magnetic field, which they may sense through specialized proteins in their eyes. While the sight of a flock in perfect V-formation is majestic, it is also practical, as it reduces wind resistance and conserves energy for each bird except the leader. Migration is a testament not to random travel, but to precise, ancient biological programming.

Based on the passage, what can be inferred about the V-formation?

(1) It is a learned behavior, not an instinctive one.

(2) It is primarily for social bonding and communication.

(3) It allows the lead bird to rest more than the others.

(4) It provides an aerodynamic advantage that saves energy. ✔

Q.153

Read the passage carefully and answer the questions that follow.
A bird flying south for the winter is not simply wandering; it is following a map written in its genes and the sky. This incredible journey, known as migration, is governed by a set of internal and external signals. The primary driver is the change in day length, which triggers hormonal changes in the birds, urging them to prepare for the long flight. They enter a state of hyperphagia, consuming vast amounts of food to store fat, their fuel for the journey. To navigate, birds use a sophisticated toolkit: the sun by day, the stars by night, and even the Earth's magnetic field, which they may sense through specialized proteins in their eyes. While the sight of a flock in perfect V-formation is majestic, it is also practical, as it reduces wind resistance and conserves energy for each bird except the leader. Migration is a testament not to random travel, but to precise, ancient biological programming.

The concept discussed in the passage is most relevant to which real-world situation?

(1) A company restructuring its teams to improve workflow efficiency
(2) **An athlete carb-loading before a marathon and using pacemakers ✔**
(3) Animals hibernating to survive the winter
(4) Planning a road trip using a map and GPS

Q.154

Read the passage carefully and answer the questions that follow.
A bird flying south for the winter is not simply wandering; it is following a map written in its genes and the sky. This incredible journey, known as migration, is governed by a set of internal and external signals. The primary driver is the change in day length, which triggers hormonal changes in the birds, urging them to prepare for the long flight. They enter a state of hyperphagia, consuming vast amounts of food to store fat, their fuel for the journey. To navigate, birds use a sophisticated toolkit: the sun by day, the stars by night, and even the Earth's magnetic field, which they may sense through specialized proteins in their eyes. While the sight of a flock in perfect V-formation is majestic, it is also practical, as it reduces wind resistance and conserves energy for each bird except the leader. Migration is a testament not to random travel, but to precise, ancient biological programming.

What is the central theme of the passage?

(1) Scientists do not fully understand how birds navigate.
(2) **Bird migration is a complex, instinct-driven process guided by environmental cues. ✔**
(3) Birds are the most intelligent navigators in the animal kingdom.
(4) Migration is a difficult and dangerous process for all birds.

Q.155

Read the passage carefully and answer the questions that follow.
A bird flying south for the winter is not simply wandering; it is following a map written in its genes and the sky. This incredible journey, known as migration, is governed by a set of internal and external signals. The primary driver is the change in day length, which triggers hormonal changes in the birds, urging them to prepare for the long flight. They enter a state of hyperphagia, consuming vast amounts of food to store fat, their fuel for the journey. To navigate, birds use a sophisticated toolkit: the sun by day, the stars by night, and even the Earth's magnetic field, which they may sense through specialized proteins in their eyes. While the sight of a flock in perfect V-formation is majestic, it is also practical, as it reduces wind resistance and conserves energy for each bird except the leader. Migration is a testament not to random travel, but to precise, ancient biological programming.

Which of the following is the most suitable title for the passage?

(1) The Dangers of Long-Distance Travel

(2) The Science and Instinct Behind Bird Migration ✔

(3) A History of Animal Navigation

(4) How Birds Find Food in Winter

Q.156

Read the passage carefully and answer the questions that follow.
For millennia, humanity has recorded its collective knowledge, not just in books, but in a living medium: the world's languages. These languages form an immense, intangible library, with each one representing a unique catalog of human experience, history, and thought. When a language disappears, it is not merely a set of words that vanishes. An entire way of seeing the world, a distinct repository of cultural knowledge about local ecosystems, medicine, and philosophy, is lost forever. Linguists estimate that of the roughly 7,000 languages spoken today, nearly half are endangered and may cease to be used by the end of this century. This erosion is often driven by globalization, cultural assimilation, and economic pressures that favor dominant languages. Preserving linguistic diversity is not about nostalgia; it is about safeguarding the intellectual heritage of humankind and the different cognitive tools we have developed to understand our existence.

Based on the passage, what can be inferred about the main cause of language loss?

(1) Speakers consciously choose to abandon their native tongues.

(2) Natural disasters are the primary reason languages die.

(3) War and conflict are the biggest threats to linguistic diversity.

(4) It is often a side effect of broader social and economic changes. ✔

Q.157

Read the passage carefully and answer the questions that follow.
For millennia, humanity has recorded its collective knowledge, not just in books, but in a living medium: the world's languages. These languages form an immense, intangible library, with each one representing a unique catalog of human experience, history, and thought. When a language disappears, it is not merely a set of words that vanishes. An entire way of seeing the world, a distinct repository of cultural knowledge about local ecosystems, medicine, and philosophy, is lost forever. Linguists estimate that of the roughly 7,000 languages spoken today, nearly half are endangered and may cease to be used by the end of this century. This erosion is often driven by globalization, cultural assimilation, and economic pressures that favor dominant languages. Preserving linguistic diversity is not about nostalgia; it is about safeguarding the intellectual heritage of humankind and the different cognitive tools we have developed to understand our existence.

What is the antonym of the word 'intangible' as used in the passage?

(1) Valuable
(2) Complicated
(3) Invisible
(4) **Physical ✔**

Q.158

Read the passage carefully and answer the questions that follow.
For millennia, humanity has recorded its collective knowledge, not just in books, but in a living medium: the world's languages. These languages form an immense, intangible library, with each one representing a unique catalog of human experience, history, and thought. When a language disappears, it is not merely a set of words that vanishes. An entire way of seeing the world, a distinct repository of cultural knowledge about local ecosystems, medicine, and philosophy, is lost forever. Linguists estimate that of the roughly 7,000 languages spoken today, nearly half are endangered and may cease to be used by the end of this century. This erosion is often driven by globalization, cultural assimilation, and economic pressures that favor dominant languages. Preserving linguistic diversity is not about nostalgia; it is about safeguarding the intellectual heritage of humankind and the different cognitive tools we have developed to understand our existence.

According to the passage, which is stated as a fact about language endangerment?

(1) Only 100 languages are spoken in the world today.
(2) All languages will eventually merge into one.
(3) **Half of the world's languages may disappear by 2100. ✔**
(4) Language preservation is primarily an economic issue.

QuickSarkari.com | WhatsApp Channel | Telegram: t.me/quick_sarkari

Q.159

Read the passage carefully and answer the questions that follow.
For millennia, humanity has recorded its collective knowledge, not just in books, but in a living medium: the world's languages. These languages form an immense, intangible library, with each one representing a unique catalog of human experience, history, and thought. When a language disappears, it is not merely a set of words that vanishes. An entire way of seeing the world, a distinct repository of cultural knowledge about local ecosystems, medicine, and philosophy, is lost forever. Linguists estimate that of the roughly 7,000 languages spoken today, nearly half are endangered and may cease to be used by the end of this century. This erosion is often driven by globalization, cultural assimilation, and economic pressures that favor dominant languages. Preserving linguistic diversity is not about nostalgia; it is about safeguarding the intellectual heritage of humankind and the different cognitive tools we have developed to understand our existence.

What is the central theme of the passage?

(1) English is becoming the most important world language.
(2) Globalization has made the world's languages more similar.
(3) Linguists are working hard to document rare languages.
(4) **Every language is a unique vessel of human knowledge whose loss diminishes us all. ✔**

Q.160

Read the passage carefully and answer the questions that follow.
For millennia, humanity has recorded its collective knowledge, not just in books, but in a living medium: the world's languages. These languages form an immense, intangible library, with each one representing a unique catalog of human experience, history, and thought. When a language disappears, it is not merely a set of words that vanishes. An entire way of seeing the world, a distinct repository of cultural knowledge about local ecosystems, medicine, and philosophy, is lost forever. Linguists estimate that of the roughly 7,000 languages spoken today, nearly half are endangered and may cease to be used by the end of this century. This erosion is often driven by globalization, cultural assimilation, and economic pressures that favor dominant languages. Preserving linguistic diversity is not about nostalgia; it is about safeguarding the intellectual heritage of humankind and the different cognitive tools we have developed to understand our existence.

Identify the tone of the passage.

(1) Detached and uninterested
(2) Celebratory and joyous
(3) Angry and accusatory
(4) **Concerned and persuasive ✔**

Hindi Language and Comprehension

Q.161 दिए गए वाक्यांश के लिए निम्न में से सार्थक शब्द का चुनाव कीजिए।
'जिसका कोई इलाज नहीं होता है'

(1) बदइलाज
(2) नाइलाज
(3) **लाइलाज ✔**
(4) बेइलाज

Q.162 सर्वोचित क्रिया-विशेषण शब्द से वाक्य का रिक्त स्थान पूर्ण करें-- बारिश हो रही है ..... आज खेल न हो पाए।

(1) नि:संदेह

(2) अवश्य

(3) अलबत्ता

(4) **शायद ✔**

Q.163 'चालाकी में सियार भी शेर' लोकोक्ति का सही अर्थ है –

(1) **चालाकी बुरी बात है ✔**

(2) चालाक व्यक्ति बड़ा काम कर सकता है

(3) शेर से मुकाबला नहीं

(4) सियार बहुत डरपोक होता है

Q.164 नीचे दिए वाक्य में रिक्त-स्थान की पूर्ति के लिए दिए गए विकल्पों में से गुणवाचक विशेषण चुनें- _____साड़ियाँ बिक रही थीं।

(1) पूरी

(2) वैसी

(3) कुछ

(4) **नीली ✔**

Q.165 'वह वस्तु जिसका उत्पादन हुआ हो' वाक्यांश के लिए एक शब्द होगा--

(1) उदभूत

(2) निर्मित

(3) **उत्पाद ✔**

(4) उपज

Q.166 'जिस पर अभियोग लगाया गया हो ' वाक्यांश के लिए सार्थक शब्द क्या होगा ?

(1) अनुगामी

(2) अवीरा

(3) **अभियुक्त ✔**

(4) अप्रत्याशित

Q.167 अच्छा-बुरा समझने की शक्ति का अभाव - इस वाक्यांश के लिए एक शब्द क्या होगा?

(1) **अविवेक ✔**

(2) पारदर्शी

(3) चालक

(4) गतिशील

Q.168 'उल्लू के से दीदे' मुहावरे का सही अर्थ होगा -

(1) फ़ौरन लौट जाना

(2) **डरावनी और बड़ी-बड़ी आँख ✔**

(3) चालाकी की बात करना

(4) मूर्ख बनाना

Q.169 वह वस्तु जिसमें बाण रखे जाएँ' – वाक्यांश के लिए, निम्नलिखित विकल्पों में से किस एक शब्द का प्रयोग सार्थक है? चयन करें-

(1) ढरका

(2) **तूणीर ✔**

(3) दरीचा

(4) त्रिकुट

QuickSarkari.com | WhatsApp Channel | Telegram: t.me/quick_sarkari

Q.170 'जाए लाख रहे साख' लोकोक्ति का सही अर्थ है –

(1) बिना यत्न किए कुछ भी नहीं मिलता

(2) पूर्ण स्वतंत्र होना

(3) धन भले ही लगे, इज्जत बचनी चाहिए ✔

(4) कोई काम नियम-कायदे से न करना

Q.171 नीचे दिए वाक्य में रिक्त-स्थान की पूर्ति के लिए दिए गए विकल्पों में से उचित क्रियापद चुनें- तुमने क्या _____?

(1) खाता

(2) खाई

(3) खाया ✔

(4) खाना

Q.172 सही वाक्य-क्रम वाले वाक्य का चयन कीजिए-

(1) एक छोटे से / रेलवे स्टेशन से / कुछ दूर / एक बहुत / बड़ा पीपल / का पेड़ था ✔

(2) एक बहुत / एक छोटे से / रेलवे स्टेशन से / कुछ दूर / बड़ा पीपल / का पेड़ था

(3) रेलवे स्टेशन से / कुछ दूर / एक बहुत / बड़ा पीपल / एक छोटे से / का पेड़ था

(4) रेलवे स्टेशन से / एक छोटे से / कुछ दूर / एक बहुत / बड़ा पीपल / का पेड़ था

Q.173 वाक्य के रिक्त स्थान को अपादान कारक से पूर्ण करें।

वह अपने घर ..... निकला ।

(1) को

(2) से ✔

(3) पर

(4) में

Q.174 निम्न में से कौन-सी लोकोक्ति अपने अर्थ से असुमेलित है?

(1) अंधों में काना राजा -- अयोग्य व्यक्तियों में कम योग्य व्यक्ति भी श्रेष्ठ बन जाता है

(2) ऊँची दुकान फीका पकवान -- बड़ी दुकानों पर अच्छा खाना नहीं मिलता ✔

(3) अधजल गगरी छलकत जाए -- ओछा व्यक्ति बहुत बढ़ा-चढ़ा कर अपनी प्रशंसा करता है

(4) अकेला चना भाड़ नहीं फोड़ सकता -- कोई भी बड़ा काम अकेले व्यक्ति से नहीं हो सकता

Q.175 रिक्त स्थान के लिए उपयुक्त विशेषण का चयन दिए गए विकल्पों में से करें।

नगर के मध्य में एक.....उपवन स्थित था।

(1) अधिक

(2) अगला

(3) दुबला

(4) सुंदर ✔

Q.176 वाक्य के रिक्त स्थान को कर्ता कारक से पूर्ण करें।

दुकानदार ..... पैसा लिया।

(1) से

(2) ने ✔

(3) का

(4) को

Quick Sarkari

Q.177 'धुन का पक्का' मुहावरे का अर्थ निम्न में से है--

(1) निश्चय पर स्थिर रहने वाला ✔

(2) झूठ बोलनेवाला

(3) दूसरों को परेशान करने वाला

(4) पूर्णत: मूर्ख होना

Q.178 निम्नलिखित वाक्यांश एक वाक्य का अभिन्न अंग हैं ,जो यहाँ क्रम में नहीं दिए गए हैं । इनको क्रम में लगाइए – 1.भुनी हुई मछली का एक टुकड़ा उठाया 2.बरामदे पर गया और 3.जोर से कौए की ओर देखते हुए कहा ले जा! ले ले!
4.किशन लाल ने मछली की थाली से

(1) 1,4,3,2

(2) 4,1,2,3 ✔

(3) 4,3,2,1

(4) 1,2,4,3

Q.179 'जान हथेली पर रखना' मुहावरे का सही अर्थ है-

(1) लोभ में फँसना

(2) प्राणों की परवाह न करना ✔

(3) निरर्थक कार्य करना

(4) असंभव कार्य करना

Q.180 निम्नलिखित वाक्य के रिक्त स्थान में क्रिया शब्द का प्रयोग करें - 'गाय और बैल चारा रहे हैं।'

(1) खाकर

(2) खाता

(3) खाना

(4) खा ✔

Q.181 दिए गए वाक्य के किस भाग में त्रुटि है?
इस समय स्कूल में रोसनी नहीं है।

(1) रोसनी ✔

(2) इस समय

(3) नहीं है ।

(4) स्कूल में

Q.182 निम्नलिखित वाक्य में रेखांकित शब्द का पर्यायवाची क्या होगा?
उज्जैन में चंद्रमौली का मंदिर स्थित है।

(1) सोमगिरि

(2) प्रभाकर

(3) दिवाकर

(4) कैलाशपति ✔

Q.183 दिए गए वाक्य के रेखांकित शब्द का पर्यायवाची पहचानें- आज का कार्य समय पर पूरा करना सभी के लिए आवश्यक है।

(1) काम ✔

(2) संगीत

(3) मौसम

(4) पर्वत

Q.184 निम्नलिखित में से कौन सा एक वाक्य वर्तनी की दृष्टि से अशुद्ध है?

(1) किताब का सारांस अपने शब्दों में लिखिए । ✔

(2) साक्ष्य सहित विवरण प्रस्तुत किया जाए ।

(3) इस कहानी संग्रह के लेखक का नाम क्या है ?

(4) क्या मुकेश पागल हो गया है ?

Q.185 निम्नलिखित वाक्य में से अशुद्ध वर्तनी वाले अंश को पहचानें - कठिन परिश्रम से प्रापत सफलता जीवन को नई दिशा दे देती है।

(1) प्रापत सफलता ✔

(2) जीवन को नई

(3) कठिन परिश्रम से

(4) दिशा दे देती है

Q.186 दिए गए वाक्य के रेखांकित शब्द का विलोम पहचानें- वह सजग होकर अपने कार्य करता है।

(1) प्यारा

(2) असावधान ✔

(3) गोल

(4) कठोर

Q.187 दिए गए वाक्य के रेखांकित शब्द का पर्यायवाची पहचानें- सफलता पाने के लिए निरंतर प्रयास करना अत्यंत आवश्यक होता है।

(1) कागज

(2) अस्पताल

(3) कोशिश ✔

(4) गेंद

Q.188 निम्नलिखित वाक्य में रेखांकित शब्द का पर्यायवाची क्या होगा?
भारतीय ज्ञान परंपरा की सबसे प्रमुख विशेषता मीमांसा है।

(1) यशोगान

(2) विवेचन ✔

(3) जानकार

(4) संभाषण

Q.189 निम्नलिखित वाक्य में रेखांकित शब्द का पर्यायवाची क्या होगा?
भारत जिस पर्वतश्रृंखला से सुरक्षित है वह हिमालय है।

(1) पवनपुत्र

(2) सुदर्शना

(3) जलधि

(4) शैलेन्द्र ✔

Q.190 दिए गए वाक्य के किस भाग में त्रुटि है?
जो धन का लालची है, वह साधू नहीं है।

(1) जो धन का

(2) नहीं है।

(3) लालची है,

(4) वह साधू ✔

QuickSarkari.com | WhatsApp Channel | Telegram: t.me/quick_sarkari

Q.191

निम्नलिखित गद्यांश के आधार पर प्रश्नों के उत्तर दीजिए।
अमृतकाल के युग में, नए भारत की रक्षा शक्ति का ताना-बाना इनोवेशन के धागों से जटिल रूप से बुना गया है। पिछले 9.5 वर्षों में देश का रक्षा बजट 2014 में 2.03 लाख करोड़ रुपए से बढ़कर 2023 में 5.94 लाख करोड़ रुपए हो गया है। यह वित्त वर्ष 2013-14 में 686 करोड़ रुपए था, जो बढ़कर 2022-23 में लगभग 16,000 करोड़ रुपए हो गया है। यह उल्लेखनीय 23 गुना वृद्धि है। ड्राफ्ट डिफेंस प्रोडक्शन ऐंड एक्सपोर्ट प्रमोशन (डी.पी.ई.पी.पी.) 2020 एक प्रकाश-स्तंभ के रूप में खड़ा है, जो 2025 तक निर्यात में 5 बिलियन अमरीकी डॉलर प्राप्त करने के महत्त्वाकांक्षी लक्ष्य हासिल करने में मदद करेगा। इसके साथ ही डी.पी.ई.पी. पी. - एयरोस्पेस और नौसेना उद्योगों सहित देश की रक्षा उत्पादन क्षमताओं को बढ़ाने की दिशा में केंद्रित और संरचित प्रयासों को प्रसारित करता है। उत्तर प्रदेश डिफेंस इंडस्ट्रियल कॉरिडोर ने 2,242+ करोड़ रुपए, जबकि तमिलनाडु रक्षा औद्योगिक कॉरिडोर ने 2023 तक 3,847+ करोड़ रुपए का निवेश किया है। आत्मनिर्भरता को बढ़ाते हुए 2025 तक 5,000 रक्षा घटकों के निर्माण का लक्ष्य, जो वर्तमान में आयातित हैं। वित्त वर्ष 2023-24 में रक्षा पूँजी खरीद बजट का रिकॉर्ड 75 प्रतिशत (लगभग एक लाख करोड़ रुपए) घरेलू उद्योग के लिए निर्धारित किया गया था, जो 2022-23 में 68 प्रतिशत से अधिक था। अप्रैल 2023 तक 369 रक्षा क्षेत्र की कंपनियों को 606 लाइसेंस जारी किए गए, जिससे औद्योगिक विकास को बढ़ावा मिला है।

डी.पी.ई.पी.पी. क्या है?

(1) ड्राफ्ट डिफेंस प्रोडक्शन ऐंड एक्सपोर्ट प्रमोशन ✔
(2) ड्राफ्ट डिफेंस प्रोडक्ट ऐंड इम्पोर्ट प्रमोशन
(3) ड्राफ्ट डिफेंस प्रोडक्ट ऐंड एक्सपोर्ट प्रमोटर
(4) ड्राफ्ट डिफेंस प्रोडक्ट ऐंड एक्सपोर्ट प्रमोशन

Q.192

निम्नलिखित गद्यांश के आधार पर प्रश्नों के उत्तर दीजिए।
अमृतकाल के युग में, नए भारत की रक्षा शक्ति का ताना-बाना इनोवेशन के धागों से जटिल रूप से बुना गया है। पिछले 9.5 वर्षों में देश का रक्षा बजट 2014 में 2.03 लाख करोड़ रुपए से बढ़कर 2023 में 5.94 लाख करोड़ रुपए हो गया है। यह वित्त वर्ष 2013-14 में 686 करोड़ रुपए था, जो बढ़कर 2022-23 में लगभग 16,000 करोड़ रुपए हो गया है। यह उल्लेखनीय 23 गुना वृद्धि है। ड्राफ्ट डिफेंस प्रोडक्शन ऐंड एक्सपोर्ट प्रमोशन (डी.पी.ई.पी.पी.) 2020 एक प्रकाश-स्तंभ के रूप में खड़ा है, जो 2025 तक निर्यात में 5 बिलियन अमरीकी डॉलर प्राप्त करने के महत्त्वाकांक्षी लक्ष्य हासिल करने में मदद करेगा। इसके साथ ही डी.पी.ई.पी. पी. - एयरोस्पेस और नौसेना उद्योगों सहित देश की रक्षा उत्पादन क्षमताओं को बढ़ाने की दिशा में केंद्रित और संरचित प्रयासों को प्रसारित करता है। उत्तर प्रदेश डिफेंस इंडस्ट्रियल कॉरिडोर ने 2,242+ करोड़ रुपए, जबकि तमिलनाडु रक्षा औद्योगिक कॉरिडोर ने 2023 तक 3,847+ करोड़ रुपए का निवेश किया है। आत्मनिर्भरता को बढ़ाते हुए 2025 तक 5,000 रक्षा घटकों के निर्माण का लक्ष्य, जो वर्तमान में आयातित हैं। वित्त वर्ष 2023-24 में रक्षा पूँजी खरीद बजट का रिकॉर्ड 75 प्रतिशत (लगभग एक लाख करोड़ रुपए) घरेलू उद्योग के लिए निर्धारित किया गया था, जो 2022-23 में 68 प्रतिशत से अधिक था। अप्रैल 2023 तक 369 रक्षा क्षेत्र की कंपनियों को 606 लाइसेंस जारी किए गए, जिससे औद्योगिक विकास को बढ़ावा मिला है।

पिछले 9.5 वर्षों में देश के रक्षा बजट में कितने प्रतिशत की वृद्धि हुई है?

(1) 30 %
(2) 23 % ✔
(3) 35 %
(4) 33 %

Q.193

निम्नलिखित गद्यांश के आधार पर प्रश्नों के उत्तर दीजिए।
अमृतकाल के युग में, नए भारत की रक्षा शक्ति का ताना-बाना इनोवेशन के धागों से जटिल रूप से बुना गया है। पिछले 9.5 वर्षों में देश का रक्षा बजट 2014 में 2.03 लाख करोड़ रुपए से बढ़कर 2023 में 5.94 लाख करोड़ रुपए हो गया है। यह वित्त वर्ष 2013-14 में 686 करोड़ रुपए था, जो बढ़कर 2022-23 में लगभग 16,000 करोड़ रुपए हो गया है। यह उल्लेखनीय 23 गुना वृद्धि है। ड्राफ्ट डिफेंस प्रोडक्शन ऐंड एक्सपोर्ट प्रमोशन (डी.पी.ई.पी.पी.) 2020 एक प्रकाश-स्तंभ के रूप में खड़ा है, जो 2025 तक निर्यात में 5 बिलियन अमरीकी डॉलर प्राप्त करने के महत्त्वाकांक्षी लक्ष्य हासिल करने में मदद करेगा। इसके साथ ही डी.पी.ई.पी. पी. - एयरोस्पेस और नौसेना उद्योगों सहित देश की रक्षा उत्पादन क्षमताओं को बढ़ाने की दिशा में केंद्रित और संरचित प्रयासों को प्रसारित करता है। उत्तर प्रदेश डिफेंस इंडस्ट्रियल कॉरिडोर ने 2,242+ करोड़ रुपए, जबकि तमिलनाडु रक्षा औद्योगिक कॉरिडोर ने 2023 तक 3,847+ करोड़ रुपए का निवेश किया है। आत्मनिर्भरता को बढ़ाते हुए 2025 तक 5,000 रक्षा घटकों के निर्माण का लक्ष्य, जो वर्तमान में आयातित हैं। वित्त वर्ष 2023-24 में रक्षा पूँजी खरीद बजट का रिकॉर्ड 75 प्रतिशत (लगभग एक लाख करोड़ रुपए) घरेलू उद्योग के लिए निर्धारित किया गया था, जो 2022-23 में 68 प्रतिशत से अधिक था। अप्रैल 2023 तक 369 रक्षा क्षेत्र की कंपनियों को 606 लाइसेंस जारी किए गए, जिससे औद्योगिक विकास को बढ़ावा मिला है।

अप्रैल 2023 तक 369 रक्षा क्षेत्र की कितनी कंपनियों को लाइसेंस जारी किए गए?

(1) 606 ✔
(2) 626
(3) 600
(4) 608

Q.194

निम्नलिखित गद्यांश के आधार पर प्रश्नों के उत्तर दीजिए।
अमृतकाल के युग में, नए भारत की रक्षा शक्ति का ताना-बाना इनोवेशन के धागों से जटिल रूप से बुना गया है। पिछले 9.5 वर्षों में देश का रक्षा बजट 2014 में 2.03 लाख करोड़ रुपए से बढ़कर 2023 में 5.94 लाख करोड़ रुपए हो गया है। यह वित्त वर्ष 2013-14 में 686 करोड़ रुपए था, जो बढ़कर 2022-23 में लगभग 16,000 करोड़ रुपए हो गया है। यह उल्लेखनीय 23 गुना वृद्धि है। ड्राफ्ट डिफेंस प्रोडक्शन ऐंड एक्सपोर्ट प्रमोशन (डी.पी.ई.पी.पी.) 2020 एक प्रकाश-स्तंभ के रूप में खड़ा है, जो 2025 तक निर्यात में 5 बिलियन अमरीकी डॉलर प्राप्त करने के महत्त्वाकांक्षी लक्ष्य हासिल करने में मदद करेगा। इसके साथ ही डी.पी.ई.पी. पी. - एयरोस्पेस और नौसेना उद्योगों सहित देश की रक्षा उत्पादन क्षमताओं को बढ़ाने की दिशा में केंद्रित और संरचित प्रयासों को प्रसारित करता है। उत्तर प्रदेश डिफेंस इंडस्ट्रियल कॉरिडोर ने 2,242+ करोड़ रुपए, जबकि तमिलनाडु रक्षा औद्योगिक कॉरिडोर ने 2023 तक 3,847+ करोड़ रुपए का निवेश किया है। आत्मनिर्भरता को बढ़ाते हुए 2025 तक 5,000 रक्षा घटकों के निर्माण का लक्ष्य, जो वर्तमान में आयातित हैं। वित्त वर्ष 2023-24 में रक्षा पूँजी खरीद बजट का रिकॉर्ड 75 प्रतिशत (लगभग एक लाख करोड़ रुपए) घरेलू उद्योग के लिए निर्धारित किया गया था, जो 2022-23 में 68 प्रतिशत से अधिक था। अप्रैल 2023 तक 369 रक्षा क्षेत्र की कंपनियों को 606 लाइसेंस जारी किए गए, जिससे औद्योगिक विकास को बढ़ावा मिला है।

उपर्युक्त गद्यांश का शीर्षक बताएं।

(1) रक्षा उत्पादन में स्वनिर्भर शक्ति
(2) रक्षा उत्पादन की प्रादेशिक भूमिका
(3) रक्षा उत्पादन में अवमूल्यन एवं नवाचार ✔
(4) रक्षा उत्पादन का वैश्विक परिप्रेक्ष्य

Q.195

निम्नलिखित गद्यांश के आधार पर प्रश्नों के उत्तर दीजिए।
अमृतकाल के युग में, नए भारत की रक्षा शक्ति का ताना-बाना इनोवेशन के धागों से जटिल रूप से बुना गया है। पिछले 9.5 वर्षों में देश का रक्षा बजट 2014 में 2.03 लाख करोड़ रुपए से बढ़कर 2023 में 5.94 लाख करोड़ रुपए हो गया है। यह वित्त वर्ष 2013-14 में 686 करोड़ रुपए था, जो बढ़कर 2022-23 में लगभग 16,000 करोड़ रुपए हो गया है। यह उल्लेखनीय 23 गुना वृद्धि है। ड्राफ्ट डिफेंस प्रोडक्शन ऐंड एक्सपोर्ट प्रमोशन (डी.पी.ई.पी.पी.) 2020 एक प्रकाश-स्तंभ के रूप में खड़ा है, जो 2025 तक निर्यात में 5 बिलियन अमरीकी डॉलर प्राप्त करने के महत्त्वाकांक्षी लक्ष्य हासिल करने में मदद करेगा। इसके साथ ही डी.पी.ई.पी. पी. - एयरोस्पेस और नौसेना उद्योगों सहित देश की रक्षा उत्पादन क्षमताओं को बढ़ाने की दिशा में केंद्रित और संरचित प्रयासों को प्रसारित करता है। उत्तर प्रदेश डिफेंस इंडस्ट्रियल कॉरिडोर ने 2,242+ करोड़ रुपए, जबकि तमिलनाडु रक्षा औद्योगिक कॉरिडोर ने 2023 तक 3,847+ करोड़ रुपए का निवेश किया है। आत्मनिर्भरता को बढ़ाते हुए 2025 तक 5,000 रक्षा घटकों के निर्माण का लक्ष्य, जो वर्तमान में आयातित हैं। वित्त वर्ष 2023-24 में रक्षा पूँजी खरीद बजट का रिकॉर्ड 75 प्रतिशत (लगभग एक लाख करोड़ रुपए) घरेलू उद्योग के लिए निर्धारित किया गया था, जो 2022-23 में 68 प्रतिशत से अधिक था। अप्रैल 2023 तक 369 रक्षा क्षेत्र की कंपनियों को 606 लाइसेंस जारी किए गए, जिससे औद्योगिक विकास को बढ़ावा मिला है।

उत्तर प्रदेश डिफेंस इंडस्ट्रियल कॉरिडोर ने 2023 तक कितना निवेश किया है?

(1) 2,003+ करोड़ रुपए
(2) 5,940 + करोड़ रुपए
(3) **2,242+ करोड़ रुपए ✔**
(4) 3,847+ करोड़ रुपए

Q.196

निम्नलिखित गद्यांश को ध्यानपूर्वक पढ़ें और पूछे गए प्रश्नों के उत्तर दें।
भारत जैसे निर्धन देश के लिए सहकारिता की आवश्यकता कौन स्वीकार नहीं करेगा? सहकारिता हमारे ग्रामीण क्षेत्रों के आर्थिक विकास में विशेष रूप से सहायक सिद्ध होगी। हमारा देश कृषि-प्रधान है। यहाँ की 75 प्रतिशत से भी अधिक जनता कृषि-कार्य से अपनी जीविका उपार्जन करती है। कृषकों की दशा दयनीय है। उनके पास छोटे-छोटे खेत हैं, पैसा नहीं है, बल्कि वे ऋण-ग्रस्त हैं। उनके खेतों से बहुत कम उपज होती है और वह भी प्रायः लगान एवं ऋण चुकाने में समाप्त हो जाती है। बेचारों के पास खाने भर को अन्न नहीं बच पाता। ऐसी दशा में सहकारिता ही उनकी रक्षा कर सकेगी। यही हमारे भूखे नंगे किसानों की भोजन-वस्त्र की समस्या हल करेगी। यही हमारे किसानों के अस्थि-पंजर शरीर में नवीन रक्त, नवीन आभा, नवीन जीवन का संचार करेगी। इसकी सबसे बड़ी विशेषता यह है कि इसमें निजी संपत्ति पर मनुष्य का अधिकार ज्यों का त्यों बना रहता है और इसके साथ ही बहुत से लोग अपने साधनों और परिश्रम को सामूहिक रूप प्रदान करके अधिक उत्पादन में समर्थ हो सकते हैं।

गद्यांश किस प्रकार की संरचना में लिखा गया है?

(1) नाट्यात्मक
(2) काव्यात्मक
(3) **विवरणात्मक (व्याख्यात्मक) ✔**
(4) संवादात्मक

Q.197

निम्नलिखित गद्यांश को ध्यानपूर्वक पढ़ें और पूछे गए प्रश्नों के उत्तर दें।
भारत जैसे निर्धन देश के लिए सहकारिता की आवश्यकता कौन स्वीकार नहीं करेगा? सहकारिता हमारे ग्रामीण क्षेत्रों के आर्थिक विकास में विशेष रूप से सहायक सिद्ध होगी। हमारा देश कृषि-प्रधान है। यहाँ की 75 प्रतिशत से भी अधिक जनता कृषि-कार्य से अपनी जीविका उपार्जन करती है। कृषकों की दशा दयनीय है। उनके पास छोटे-छोटे खेत हैं, पैसा नहीं है, बल्कि वे ऋण-ग्रस्त हैं। उनके खेतों से बहुत कम उपज होती है और वह भी प्रायः लगान एवं ऋण चुकाने में समाप्त हो जाती है। बेचारों के पास खाने भर को अन्न नहीं बच पाता। ऐसी दशा में सहकारिता ही उनकी रक्षा कर सकेगी। यही हमारे भूखे नंगे किसानों की भोजन-वस्त्र की समस्या हल करेगी। यही हमारे किसानों के अस्थि-पंजर शरीर में नवीन रक्त, नवीन आभा, नवीन जीवन का संचार करेगी। इसकी सबसे बड़ी विशेषता यह है कि इसमें निजी संपत्ति पर मनुष्य का अधिकार ज्यों का त्यों बना रहता है और इसके साथ ही बहुत से लोग अपने साधनों और परिश्रम को सामूहिक रूप प्रदान करके अधिक उत्पादन में समर्थ हो सकते हैं।

इस गद्यांश का सर्वाधिक उपयुक्त शीर्षक कौन सा है?

(1) किसानों की समस्याएँ और उनके समाधान
(2) भारत में औद्योगिक क्रांति
(3) **सहकारिता का महत्व ✔**
(4) सम्पत्ति का व्यक्तिगत अधिकार

Q.198

निम्नलिखित गद्यांश को ध्यानपूर्वक पढ़ें और पूछे गए प्रश्नों के उत्तर दें।
भारत जैसे निर्धन देश के लिए सहकारिता की आवश्यकता कौन स्वीकार नहीं करेगा? सहकारिता हमारे ग्रामीण क्षेत्रों के आर्थिक विकास में विशेष रूप से सहायक सिद्ध होगी। हमारा देश कृषि-प्रधान है। यहाँ की 75 प्रतिशत से भी अधिक जनता कृषि-कार्य से अपनी जीविका उपार्जन करती है। कृषकों की दशा दयनीय है। उनके पास छोटे-छोटे खेत हैं, पैसा नहीं है, बल्कि वे ऋण-ग्रस्त हैं। उनके खेतों से बहुत कम उपज होती है और वह भी प्रायः लगान एवं ऋण चुकाने में समाप्त हो जाती है। बेचारों के पास खाने भर को अन्न नहीं बच पाता। ऐसी दशा में सहकारिता ही उनकी रक्षा कर सकेगी। यही हमारे भूखे नंगे किसानों की भोजन-वस्त्र की समस्या हल करेगी। यही हमारे किसानों के अस्थि-पंजर शरीर में नवीन रक्त, नवीन आभा, नवीन जीवन का संचार करेगी। इसकी सबसे बड़ी विशेषता यह है कि इसमें निजी संपत्ति पर मनुष्य का अधिकार ज्यों का त्यों बना रहता है और इसके साथ ही बहुत से लोग अपने साधनों और परिश्रम को सामूहिक रूप प्रदान करके अधिक उत्पादन में समर्थ हो सकते हैं।

गद्यांश के अनुसार निम्न में से कौन-सा कथन सही है?

(1) किसान बहुत अधिक उपज प्राप्त करते हैं।
(2) ग्रामीण क्षेत्रों में कोई भी समस्या नहीं है।
(3) सहकारिता निजी संपत्ति को समाप्त कर देती है।
(4) **किसानों की दशा ऋण-ग्रस्त और दयनीय है। ✔**

Q.199

निम्नलिखित गद्यांश को ध्यानपूर्वक पढ़ें और पूछे गए प्रश्नों के उत्तर दें।
भारत जैसे निर्धन देश के लिए सहकारिता की आवश्यकता कौन स्वीकार नहीं करेगा? सहकारिता हमारे ग्रामीण क्षेत्रों के आर्थिक विकास में विशेष रूप से सहायक सिद्ध होगी। हमारा देश कृषि-प्रधान है। यहाँ की 75 प्रतिशत से भी अधिक जनता कृषि-कार्य से अपनी जीविका उपार्जन करती है। कृषकों की दशा दयनीय है। उनके पास छोटे-छोटे खेत हैं, पैसा नहीं है, बल्कि वे ऋण-ग्रस्त हैं। उनके खेतों से बहुत कम उपज होती है और वह भी प्रायः लगान एवं ऋण चुकाने में समाप्त हो जाती है। बेचारों के पास खाने भर को अन्न नहीं बच पाता। ऐसी दशा में सहकारिता ही उनकी रक्षा कर सकेगी। यही हमारे भूखे नंगे किसानों की भोजन-वस्त्र की समस्या हल करेगी। यही हमारे किसानों के अस्थि-पंजर शरीर में नवीन रक्त, नवीन आभा, नवीन जीवन का संचार करेगी। इसकी सबसे बड़ी विशेषता यह है कि इसमें निजी संपत्ति पर मनुष्य का अधिकार ज्यों का त्यों बना रहता है और इसके साथ ही बहुत से लोग अपने साधनों और परिश्रम को सामूहिक रूप प्रदान करके अधिक उत्पादन में समर्थ हो सकते हैं।

गद्यांश का केंद्रीय विषय क्या है?

(1) कृषि में नई तकनीक
(2) ग्रामीण जीवन की कठिनाइयाँ
(3) **सहकारिता से किसानों का उत्थान ✓**
(4) सरकारी नीतियों की आलोचना

Q.200

निम्नलिखित गद्यांश को ध्यानपूर्वक पढ़ें और पूछे गए प्रश्नों के उत्तर दें।
भारत जैसे निर्धन देश के लिए सहकारिता की आवश्यकता कौन स्वीकार नहीं करेगा? सहकारिता हमारे ग्रामीण क्षेत्रों के आर्थिक विकास में विशेष रूप से सहायक सिद्ध होगी। हमारा देश कृषि-प्रधान है। यहाँ की 75 प्रतिशत से भी अधिक जनता कृषि-कार्य से अपनी जीविका उपार्जन करती है। कृषकों की दशा दयनीय है। उनके पास छोटे-छोटे खेत हैं, पैसा नहीं है, बल्कि वे ऋण-ग्रस्त हैं। उनके खेतों से बहुत कम उपज होती है और वह भी प्रायः लगान एवं ऋण चुकाने में समाप्त हो जाती है। बेचारों के पास खाने भर को अन्न नहीं बच पाता। ऐसी दशा में सहकारिता ही उनकी रक्षा कर सकेगी। यही हमारे भूखे नंगे किसानों की भोजन-वस्त्र की समस्या हल करेगी। यही हमारे किसानों के अस्थि-पंजर शरीर में नवीन रक्त, नवीन आभा, नवीन जीवन का संचार करेगी। इसकी सबसे बड़ी विशेषता यह है कि इसमें निजी संपत्ति पर मनुष्य का अधिकार ज्यों का त्यों बना रहता है और इसके साथ ही बहुत से लोग अपने साधनों और परिश्रम को सामूहिक रूप प्रदान करके अधिक उत्पादन में समर्थ हो सकते हैं।

गद्यांश में प्रयुक्त शब्द "अस्थि-पंजर" का अर्थ क्या है?

(1) कठोर परिश्रम
(2) **हड्डियों का ढाँचा ✓**
(3) प्राकृतिक संरचना
(4) उपजाऊ भूमि

Answer Key / उत्तर कुंजी

1 1	**2** 1	**3** 4	**4** 2	**5** 1	**6** 2	**7** 1	**8** 2	**9** 2	**10** 3	**11** 4	**12** 3	**13** 3	**14** 2	**15** 4
16 3	**17** 2	**18** 1	**19** 4	**20** 2	**21** 2	**22** 1	**23** 4	**24** 4	**25** 2	**26** 4	**27** 4	**28** 2	**29** 3	**30** 2
31 4	**32** 1	**33** 3	**34** 2	**35** 3	**36** 2	**37** 2	**38** 1	**39** 3	**40** 3	**41** 1	**42** 3	**43** 1	**44** 2	**45** 4
46 3	**47** 1	**48** 1	**49** 2	**50** 4	**51** 2	**52** 1	**53** 1	**54** 2	**55** 2	**56** 3	**57** 4	**58** 4	**59** 1	**60** 2
61 1	**62** 2	**63** 4	**64** 3	**65** 2	**66** 3	**67** 4	**68** 4	**69** 3	**70** 4	**71** 3	**72** 1	**73** 3	**74** 2	**75** 4
76 1	**77** 1	**78** 1	**79** 4	**80** 4	**81** 4	**82** 1	**83** 4	**84** 2	**85** 3	**86** 1	**87** 3	**88** 1	**89** 1	**90** 1

91 2	**92** 1	**93** 2	**94** 3	**95** 1	**96** 2	**97** 1	**98** 4	**99** 2	**100** 2	**101** 2	**102** 4	**103** 3	**104** 1	**105** 3
106 3	**107** 3	**108** 2	**109** 2	**110** 4	**111** 2	**112** 1	**113** 2	**114** 3	**115** 4	**116** 1	**117** 4	**118** 1	**119** 3	**120** 4
121 4	**122** 4	**123** 4	**124** 3	**125** 1	**126** 1	**127** 1	**128** 1	**129** 1	**130** 4	**131** 1	**132** 4	**133** 3	**134** 4	**135** 1
136 2	**137** 1	**138** 1	**139** 2	**140** 2	**141** 4	**142** 4	**143** 2	**144** 2	**145** 2	**146** 3	**147** 2	**148** 4	**149** 3	**150** 4
151 1	**152** 4	**153** 2	**154** 2	**155** 2	**156** 4	**157** 4	**158** 3	**159** 4	**160** 4	**161** 3	**162** 4	**163** 1	**164** 4	**165** 3
166 3	**167** 1	**168** 2	**169** 2	**170** 3	**171** 3	**172** 1	**173** 2	**174** 2	**175** 4	**176** 2	**177** 1	**178** 2	**179** 2	**180** 4
181 1	**182** 4	**183** 1	**184** 1	**185** 1	**186** 2	**187** 3	**188** 2	**189** 4	**190** 4	**191** 1	**192** 2	**193** 1	**194** 3	**195** 3
196 3	**197** 3	**198** 4	**199** 3	**200** 2										

Quick Sarkari

GOVT. OF NCT OF DELHI
Delhi Subordinate Services Selection Board
FC-18, Institutional Area, Karkardooma, Delhi – 110092.
www.dsssb.delhigovt.nic.in

Participant ID	[redacted]
Participant Name	[redacted]
Test Center Name	Aadarsh Pariksha Kendra CENTER B - Gate No 2 - Noida Sector 64
Test Date	01/03/2026
Test Time	1:00 PM - 3:00 PM
Subject	Assistant Security Officer

Section : **General intelligence and Reasoning Ability**

Q.1 **Seven people, L, A, Y, O, U, T and S are sitting in a row, facing north. Only three people sit to the left of T. Only S sits to the right of L. Only three people sit between L and O. U sits at some place to the left of A but at some place to the right of Y. How many people sit between Y and A?**

Ans
✔ 1. Three
✘ 2. One
✘ 3. Two
✘ 4. Four

Question ID : **4410091463236**
Option 1 ID : **4410095781084**
Option 2 ID : **4410095781082**
Option 3 ID : **4410095781083**
Option 4 ID : **4410095781085**

Q.2 **C, O, B, R, A and S live on six different floors of the same building. The lowermost floor in the building is numbered 1, the floor above it, number 2 and so on till the topmost floor is numbered 6. Only B lives above A. C lives immediately below A. Only R lives below S. Who lives on floor numbered 3?**

Ans
✔ 1. O
✘ 2. R
✘ 3. A
✘ 4. C

Question ID : **4410091463362**
Option 1 ID : **4410095781583**
Option 2 ID : **4410095781584**
Option 3 ID : **4410095781585**
Option 4 ID : **4410095781582**

QuickSarkari.com | WhatsApp Channel | Telegram: t.me/quick_sarkari

Q.3 Refer to the following letter series and answer the question. Counting to be done from left to right only.
(Left) P I Y U J A N F Q S B C R A V P J J Q (Right)
How many such consonants are there each of which is immediately preceded by a vowel and also immediately followed by a vowel?

Ans
✗ 1. Four
✗ 2. One
✗ 3. Three
✓ 4. Two

Question ID : **4410097781 08**
Option 1 ID : **4410093066438**
Option 2 ID : **4410093066435**
Option 3 ID : **4410093066437**
Option 4 ID : **4410093066436**

Q.4 Seven people, G, L, A, M, O, U and R are sitting in a row, facing north.
No one sits to the left of L. Only four people sit between L and O. Only three people sit to the right of G. U sits to the immediate left of R. M is not an immediate neighbor of G.
Who sits at the rightmost end of the line?

Ans
✗ 1. U
✓ 2. M
✗ 3. A
✗ 4. G

Question ID : **4410091463192**
Option 1 ID : **4410095780909**
Option 2 ID : **4410095780908**
Option 3 ID : **4410095780907**
Option 4 ID : **4410095780906**

Q.5 C, O, B, R, A and S live on six different floors of the same building. The lowermost floor in the building is numbered 1, the floor above it, number 2 and so on till the topmost floor is numbered 6. Only two people live between C and O. Only two people live between B and S. No one lives above B. O lives below S but above R. How many people live below A?

Ans
✓ 1. Three
✗ 2. One
✗ 3. Four
✗ 4. Two

Question ID : **4410091463371**
Option 1 ID : **4410095781620**
Option 2 ID : **4410095781618**
Option 3 ID : **4410095781621**
Option 4 ID : **4410095781619**

Q.6 Seven boxes A,L,R, M, I, N and G are kept one over the other but not necessarily in the same order.
No box is kept above A. Only three boxes are kept between A and L. Only one box is kept between I and M. M is kept immediately above L. Only four boxes are kept between I and R. G is kept at some place above N.
Which box is kept second below G?

Ans
✗ 1. N
✓ 2. L
✗ 3. A
✗ 4. M

Question ID : **4410091463246**
Option 1 ID : **4410095781125**
Option 2 ID : **4410095781123**
Option 3 ID : **4410095781122**
Option 4 ID : **4410095781124**

Q.7 Six friends Poonam, Komal, Varun, Shree, Jiya, and Mudit are sitting in a straight line, facing north. Mudit sits third to the right of Shree. Shree is an immediate neighbor of Komal and Jiya. Varun sits second to the left of Poonam. Komal is not an immediate neighbor of Varun. Three of the following four are alike in a certain way based on the given arrangement and thus form a group. Which one does not belong to that group?

Ans
✓ 1. Komal and Poonam
✗ 2. Komal and Jiya
✗ 3. Jiya and Mudit
✗ 4. Shree and Varun

Question ID : **441009789160**
Option 1 ID : **4410093110641**
Option 2 ID : **4410093110639**
Option 3 ID : **4410093110642**
Option 4 ID : **4410093110640**

Q.8 Seven boxes R, A, C, K, E, T and S are kept one over the other but not necessarily in the same order.
Only two boxes are kept between E and R. Only C is kept above A. No box is kept below R. K is kept at some place below T but at some place above S.
Which box is kept third above S?

Ans
✗ 1. R
✓ 2. T
✗ 3. E
✗ 4. C

Question ID : **4410091463270**
Option 1 ID : **4410095781214**
Option 2 ID : **4410095781217**
Option 3 ID : **4410095781216**
Option 4 ID : **4410095781215**

Q.9 In a certain language,
'A @ B' means 'A is the mother of B'
'A + B' means 'A is the brother of B'
'A $ B' means 'A is the wife of B'
'A x B' means 'A is the father of B'

Which of the following mean(s) that G is the mother's mother of P?
I. G @ F + K $ L x P
II. G + F @ K x L $ P
III. G @ F $ K x L + P
IV. G x F @ K + L $ P

Ans
✗ 1. Both I and IV
✓ 2. Both I and III
✗ 3. Only I
✗ 4. Both II and III

Question ID : **4410091510340**
Option 1 ID : **4410095965874**
Option 2 ID : **4410095965872**
Option 3 ID : **4410095965875**
Option 4 ID : **4410095965873**

Q.10 G is the mother of H. H is the only son of J. L is the sister of H. M is the son of H. How is G related to M?

Ans
✗ 1. Daughter
✗ 2. Father's sister
✓ 3. Father's mother
✗ 4. Sister's daughter

Question ID : **4410091737684**
Option 1 ID : **4410096852454**
Option 2 ID : **4410096852452**
Option 3 ID : **4410096852451**
Option 4 ID : **4410096852453**

Q.11 In a certain code language, 'POST' is coded as '4856' and 'MOST' is coded as '6428'. What is the code for 'M' in the given code language?

Ans
✗ 1. 6
✗ 2. 4
✗ 3. 8
✓ 4. 2

Question ID : **441009795961**
Option 1 ID : **4410093137845**
Option 2 ID : **4410093137844**
Option 3 ID : **4410093137846**
Option 4 ID : **4410093137843**

Q.12 Refer to the following letter series and answer the question. Counting to be done from left to right only.
(Left) P Q R S T U V W X Y Z A B C (Right)
How many vowels are immediately preceded by consonants?

Ans
✗ 1. Three
✗ 2. One
✓ 3. Two
✗ 4. Four

Question ID : **441009778457**
Option 1 ID : **4410093067833**
Option 2 ID : **4410093067831**
Option 3 ID : **4410093067832**
Option 4 ID : **4410093067834**

Q.13 Refer to the following series and answer the question. Counting to be done from left to right only.
(Left) H T T H H T H T T T H H T (Right)
How many H's are immediately followed by a T?

Ans
✗ 1. Two
✗ 2. Three
✓ 3. Four
✗ 4. Five

Question ID : **441009778463**
Option 1 ID : **4410093067855**
Option 2 ID : **4410093067856**
Option 3 ID : **4410093067857**
Option 4 ID : **4410093067858**

Q.14 Refer to the following letter, symbol series and answer the question.
Counting to be done from left to right only.
(Left) % B % £ S & # % X A W % E U © W © S T % £ © (Right)
How many such symbols are there each of which is immediately preceded by a letter and also immediately followed by a letter?

Ans
✗ 1. Four
✓ 2. Three
✗ 3. Two
✗ 4. Five

Question ID : **441009790800**
Option 1 ID : **4410093117200**
Option 2 ID : **4410093117199**
Option 3 ID : **4410093117201**
Option 4 ID : **4410093117202**

QuickSarkari.com | WhatsApp Channel | Telegram: t.me/quick_sarkari

Q.15 Refer to the following letter series and answer the question that follows.
Counting to be done from left to right only.

(Left) B K F A E H Q K S D S L M Y M R Y R G W L (Right)

How many such vowels are there, each of which is immediately preceded by a consonant and also immediately followed by a consonant?

Ans
✗ 1. Two
✗ 2. One
✗ 3. Three
✓ 4. None

Question ID : **441009782847**
Option 1 ID : **4410093085392**
Option 2 ID : **4410093085391**
Option 3 ID : **4410093085393**
Option 4 ID : **4410093085394**

Q.16 W,I,N,T,E,R and S are sitting around a circular table facing the centre of the table.
Only two people sit between R and W when counted from the right of R. Only two people sit between W and N when counted from the right of W. Only three people sit between R and T when counted from the right of R. S sits to the immediate left of I. Who sits third to the left of E?

Ans
✗ 1. S
✗ 2. N
✓ 3. I
✗ 4. W

Question ID : **4410091463138**
Option 1 ID : **4410095780693**
Option 2 ID : **4410095780692**
Option 3 ID : **4410095780691**
Option 4 ID : **4410095780690**

Q.17 In a certain code language, 'MOVE' is coded as '4179' and 'MORE' is coded as '0914'. What is the code for 'R' in the given code language?

Ans
✗ 1. 1
✓ 2. 0
✗ 3. 7
✗ 4. 9

Question ID : **4410091463406**
Option 1 ID : **4410095781760**
Option 2 ID : **4410095781758**
Option 3 ID : **4410095781759**
Option 4 ID : **4410095781761**

QuickSarkari.com | WhatsApp Channel | Telegram: t.me/quick_sarkari

Q.18 Refer to the following number, symbol series and answer the question. Counting to be done from left to right only. (all numbers are single digit numbers only).
(Left) = 7 4 ? 9 4 % 5 1 + 5 > 8 3 1 β ≤ 4 ? 5 < 3 7 + 3 # 7 ? 5 1 ! 9 (Right)
How many such symbols are there each of which are immediately preceded by a perfect square and also immediately followed by a symbol? (NOTE: 1 is also a perfect square)

Ans
✔ 1. One
✘ 2. Two
✘ 3. Three
✘ 4. None

Question ID : **441009796208**
Option 1 ID : **4410093138832**
Option 2 ID : **4410093138833**
Option 3 ID : **4410093138834**
Option 4 ID : **4410093138831**

Q.19 Each letter in the word PLATFORM is changed to the letter immediately following it in the English alphabetical order. How many letters are there in the English alphabetical series between the letter which is second from the left end and second from the right end in the new letter-cluster thus formed?

Ans
✘ 1. 6
✘ 2. 4
✘ 3. 7
✔ 4. 5

Question ID : **441009789757**
Option 1 ID : **4410093113029**
Option 2 ID : **4410093113027**
Option 3 ID : **4410093113030**
Option 4 ID : **4410093113028**

Q.20 Refer to the following letter series and answer the question. Counting to be done from left to right only.
(Left) P Z C A G X T K P T K Z A I Q T K T P (Right)
How many such vowels are there each of which is immediately preceded by a consonant and also immediately followed by a consonant?

Ans
✘ 1. Two
✔ 2. One
✘ 3. Four
✘ 4. Three

Question ID : **441009778107**
Option 1 ID : **4410093066432**
Option 2 ID : **4410093066431**
Option 3 ID : **4410093066434**
Option 4 ID : **4410093066433**

Section : **General intelligence and Reasoning Ability1**

QuickSarkari.com | WhatsApp Channel | Telegram: t.me/quick_sarkari

Q.1 WY 5 is related to TV 10 in a certain way. In the same way, KM 15 is related to HJ 30. To which of the following is EG 8 related to following the same logic?

Ans
1. BZ 19
2. BD 16
3. AD 19
4. AC 16

Question ID : **441009797541**
Option 1 ID : **4410093144166**
Option 2 ID : **4410093144163**
Option 3 ID : **4410093144165**
Option 4 ID : **4410093144164**

Q.2 Based on the alphabetical order, three of the following four are alike in a certain way and thus form a group. Which is the one that does not belong to that group?
(Note: The odd man out is not based on the number of consonants/vowels or their position in the letter cluster)

Ans
1. KMH
2. MOI
3. QSM
4. OQK

Question ID : **441009804900**
Option 1 ID : **4410093173723**
Option 2 ID : **4410093173724**
Option 3 ID : **4410093173726**
Option 4 ID : **4410093173725**

Q.3 What should come in place of ? in the given series based on the English alphabetical order?
EAW SOK GCY UQM ?

Ans
1. IDZ
2. IFZ
3. IJL
4. IEA

Question ID : **4410091522571**
Option 1 ID : **4410096013407**
Option 2 ID : **4410096013406**
Option 3 ID : **4410096013408**
Option 4 ID : **4410096013405**

QuickSarkari.com | WhatsApp Channel | Telegram: t.me/quick_sarkari

Q.4 Select the set in which the numbers are related in the same way as are the numbers of the following sets.

(NOTE: Operations should be performed on the whole numbers, without breaking down the numbers into their constituent digits. E.g. 13 – Operations on 13 such as adding/subtracting/multiplying to 13 can be performed. Breaking down 13 into 1 and 3 and then performing mathematical operations on 1 and 3 is not allowed.)

(6, 16, 34)
(9, 22, 40)

Ans
✗ 1. (10, 24, 6)
✗ 2. (7, 10, 28)
✗ 3. (13, 30, 46)
✓ 4. (8, 20, 38)

Question ID : **441009590337**
Option 1 ID : **4410092316463**
Option 2 ID : **4410092316462**
Option 3 ID : **4410092316464**
Option 4 ID : **4410092316461**

Q.5 Select the correct mirror image of the given figure when the mirror is placed at PQ as shown below.

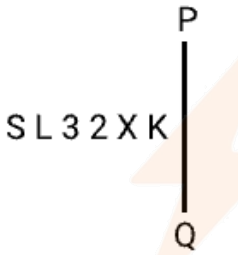

Ans
✗ 1. ꓘ X Ƨ Ɛ ⅂ S
✓ 2. ꓘ X Ƨ Ɛ ⅃ Ƨ
✗ 3. ꓘ X 2 Ɛ ⅂ S
✗ 4. ꓘ X 2 3 ⅃ S

Question ID : **4410091482947**
Option 1 ID : **4410095858756**
Option 2 ID : **4410095858754**
Option 3 ID : **4410095858753**
Option 4 ID : **4410095858755**

Quick Sarkari

Q.6 What will come in the place of '?' in the following equation, if '+' and '-' are interchanged and 'x' and '÷' are interchanged?
33 - 42 × 3 + 10 ÷ 19 = ?

Ans
✗ 1. -142
✗ 2. -141
✗ 3. -145
✓ 4. -143

Question ID : **4410091522503**
Option 1 ID : **4410096013137**
Option 2 ID : **4410096013135**
Option 3 ID : **4410096013136**
Option 4 ID : **4410096013134**

Q.7 If 'A' stands for '÷', 'B' stands for 'x', 'C' stands for '+' and 'D' stands for '−', what will come in place of the question mark '?' in the following equation?

78 D 9 B 6 C 56 A 4 = ?

Ans
✗ 1. 35
✗ 2. 31
✗ 3. 30
✓ 4. 38

Question ID : **441009553543**
Option 1 ID : **4410092169487**
Option 2 ID : **4410092169486**
Option 3 ID : **4410092169488**
Option 4 ID : **4410092169489**

Q.8 Based on the alphabetical order, three of the following four are alike in a certain way and thus form a group. Which is the one that does not belong to that group?
(Note: The odd one out is not based on the number of consonants/vowels or their position in the letter cluster)

Ans
✗ 1. KSAI
✓ 2. BIRZ
✗ 3. VDLT
✗ 4. RZHP

Question ID : **441009792803**
Option 1 ID : **4410093125214**
Option 2 ID : **4410093125212**
Option 3 ID : **4410093125213**
Option 4 ID : **4410093125211**

QuickSarkari.com | WhatsApp Channel | Telegram: t.me/quick_sarkari

Q.9 Based on the alphabetical order, three of the following four are alike in a certain way and thus form a group. Which is the one that does not belong to that group?
(Note: The odd man out is not based on the number of consonants/vowels or their position in the letter cluster)

Ans
- ✗ 1. QRT
- ✗ 2. KLN
- ✓ 3. GHK
- ✗ 4. RSU

Question ID : **441009789164**
Option 1 ID : **4410093110656**
Option 2 ID : **4410093110658**
Option 3 ID : **4410093110655**
Option 4 ID : **4410093110657**

Q.10 If 1 is added to each odd digit and 2 is subtracted from each even digit in the number 7128534, what will be the difference of the digits which are second from the left and second from the right in the new number thus formed?

Ans
- ✗ 1. 1
- ✓ 2. 2
- ✗ 3. 3
- ✗ 4. 0

Question ID : **4410091522426**
Option 1 ID : **4410096012820**
Option 2 ID : **4410096012818**
Option 3 ID : **4410096012819**
Option 4 ID : **4410096012821**

Q.11 Select the correct mirror image of the given figure when the mirror is placed at PQ as shown below.



Ans
- ✗ 1. 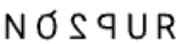
- ✗ 2. 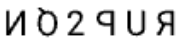
- ✗ 3. 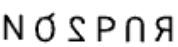
- ✓ 4. 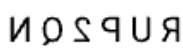

Question ID : **4410091482938**
Option 1 ID : **4410095858719**
Option 2 ID : **4410095858718**
Option 3 ID : **4410095858717**
Option 4 ID : **4410095858720**

QuickSarkari.com | WhatsApp Channel | Telegram: t.me/quick_sarkari

Q.12 TWXV is related to SVWU in a certain way based on the English alphabetical order. In the same way, HKLJ is related to GJKI. To which of the following is WZAY related to, following the same logic?

Ans
✔ 1. VYZX
✘ 2. VZYH
✘ 3. VXYX
✘ 4. VYYX

Question ID : **4410091475785**
Option 1 ID : **4410095830435**
Option 2 ID : **4410095830436**
Option 3 ID : **4410095830437**
Option 4 ID : **4410095830438**

Q.13 If 'A' stands for '÷', 'B' stands for '×', 'C' stands for '+' and 'D' stands for '−', what will come in place of the question mark '?' in the following equation?

7 C 15 B 2 D 26 A 2 = ?

Ans
✘ 1. 26
✘ 2. 25
✔ 3. 24
✘ 4. 22

Question ID : **4410091522339**
Option 1 ID : **4410096012459**
Option 2 ID : **4410096012461**
Option 3 ID : **4410096012458**
Option 4 ID : **4410096012460**

Q.14 202 is related to 392 following a certain logic. Following the same logic, 152 is related to 342. To which of the following is 176 related, following the same logic?

(NOTE: Operations should be performed on the whole numbers, without breaking down the numbers into their constituent digits. E.g. 13 – Operations on 13 such as adding/subtracting/multiplying to 13 can be performed. Breaking down 13 into 1 and 3 and then performing mathematical operations on 1 and 3 is not allowed.)

Ans
✘ 1. 356
✔ 2. 366
✘ 3. 386
✘ 4. 376

Question ID : **441009590375**
Option 1 ID : **4410092316613**
Option 2 ID : **4410092316614**
Option 3 ID : **4410092316616**
Option 4 ID : **4410092316615**

Q.15 JJ 8 is related to LF -1 in a certain way. In the same way, UP 5 is related to WL -4. To which of the following is QQ 12 related, following the same logic?

Ans
✗ 1. FR 2
✗ 2. WR 1
✓ 3. SM 3
✗ 4. HJ 4

Question ID : **441009776390**
Option 1 ID : **4410093059565**
Option 2 ID : **4410093059566**
Option 3 ID : **4410093059563**
Option 4 ID : **4410093059564**

Q.16 Select the set in which the numbers are related in the same way as are the numbers of the given sets.

(NOTE: Operations should be performed on the whole numbers, without breaking down the numbers into its constituent digits. E.g. 13 – Operations on 13 such as adding/subtracting/multiplying etc. to 13 can be performed. Breaking down 13 into 1 and 3 and then performing mathematical operations on 1 and 3 is not allowed.)

(729, 631, 695)
(812, 714, 778)

Ans
✗ 1. (859, 741, 815)
✓ 2. (986, 888, 952)
✗ 3. (773, 685, 719)
✗ 4. (693, 585, 659)

Question ID : **441009603826**
Option 1 ID : **4410092370424**
Option 2 ID : **4410092370423**
Option 3 ID : **4410092370422**
Option 4 ID : **4410092370421**

Quick Sarkari

Q.17 Below are given two sets of numbers. In each set of numbers, a certain mathematical operation on the first number results in the second number. Similarly, certain mathematical operation on the second number results in the third number and so on. Which of the given options follows the same set of operations as in question?

(NOTE – A two / three-digit number cannot be broken into individual digits for operations e.g. if 37 is followed by 10, the operation cannot be 3+7 as a two-digit number cannot be broken into individual digits.)

3 – 7 – 21 – 16
6 – 13 – 39 – 34

Ans
1. 5 – 9 – 27 – 22
2. 7 – 15 – 45 – 40
3. 9 – 19 – 57 – 62
4. 8 – 17 – 52 – 47

Question ID : **441009588248**
Option 1 ID : **4410092308118**
Option 2 ID : **4410092308119**
Option 3 ID : **4410092308121**
Option 4 ID : **4410092308120**

Q.18 Below are given two sets of numbers. In each set of numbers, a certain mathematical operation on the first number results in the second number. Similarly, certain mathematical operation on the second number results in the third number and so on. Which of the given options follows the same set of operations as in question?

(NOTE – A two / three-digit number cannot be broken into individual digits for operations e.g. if 37 is followed by 10, the operation cannot be 3+7 as a two-digit number cannot be broken into individual digits.)

12 – 31 – 65 – 45
14 – 37 – 77 – 57

Ans
1. 11 – 28 – 59 – 39
2. 15 – 40 – 77 – 57
3. 8 – 19 – 41 – 61
4. 13 – 34 – 71 – 49

Question ID : **441009588246**
Option 1 ID : **4410092308113**
Option 2 ID : **4410092308112**
Option 3 ID : **4410092308110**
Option 4 ID : **4410092308111**

Quick Sarkari

Q.19 VP 10 is related to YS 21 in a certain way. In the same way, MG 15 is related to PJ 26. To which of the following is GA 9 related to following the same logic?

Ans
✗ 1. BP 21
✗ 2. LE 22
✓ 3. JD 20
✗ 4. WP 20

Question ID : **4410096796852**
Option 1 ID : **4410093141407**
Option 2 ID : **4410093141408**
Option 3 ID : **4410093141409**
Option 4 ID : **4410093141410**

Q.20 In the given English alphabetical series, one letter is missing. Identify the correct option.

Z, X, U, Q, ?

Ans
✗ 1. O
✗ 2. P
✓ 3. L
✗ 4. M

Question ID : **4410091261638**
Option 1 ID : **4410094979426**
Option 2 ID : **4410094979427**
Option 3 ID : **4410094979425**
Option 4 ID : **4410094979428**

Section : **General Awareness**

Q.1 Which was the first Act passed by the British Parliament to regulate the affairs of the East India Company in India, introducing the designation of 'Governor-General of Bengal'?

Ans
✓ 1. Regulating Act, 1773
✗ 2. Pitt's India Act, 1784
✗ 3. Charter Act of 1813
✗ 4. Government of India Act, 1858

Question ID : **4410091537718**
Option 1 ID : **4410096074131**
Option 2 ID : **4410096074132**
Option 3 ID : **4410096074133**
Option 4 ID : **4410096074134**

Q.2 **Which social change in India was encouraged by reformers influenced by Western ideas during British rule?**

Ans
✗ 1. Promotion of caste rigidity
✗ 2. Revival of sati rituals
✓ 3. Support for widow remarriage
✗ 4. Expansion of untouchability practices

Question ID : **4410091558794**
Option 1 ID : **4410096157561**
Option 2 ID : **4410096157564**
Option 3 ID : **4410096157562**
Option 4 ID : **4410096157563**

Q.3 **What is the role of the World Trade Organisation (WTO) in an open economy?**

Ans
✓ 1. To regulate and facilitate international trade agreements
✗ 2. To promote protectionism and restrict international trade
✗ 3. To provide financial assistance to developing countries
✗ 4. To control exchange rates between different currencies

Question ID : **441009626906**
Option 1 ID : **4410092461777**
Option 2 ID : **4410092461776**
Option 3 ID : **4410092461779**
Option 4 ID : **4410092461778**

Q.4 **Which major river system is fed by tributaries such as the Yamuna, Ghaghara, and Kosi?**

Ans
✗ 1. Peninsular River System
✓ 2. Ganga River System
✗ 3. Indus River System
✗ 4. Brahmaputra River System

Question ID : **4410091584223**
Option 1 ID : **4410096258198**
Option 2 ID : **4410096258195**
Option 3 ID : **4410096258196**
Option 4 ID : **4410096258197**

Q.5 **Which factor primarily causes most rivers of Peninsular India to have a seasonal flow?**

Ans
✗ 1. Continuous snowmelt throughout the year
✗ 2. Location in permanently humid regions
✗ 3. Origin from glaciers in high mountains
✓ 4. Dependence on monsoon rainfall

Question ID : **4410091584325**
Option 1 ID : **4410096258557**
Option 2 ID : **4410096258558**
Option 3 ID : **4410096258556**
Option 4 ID : **4410096258555**

QuickSarkari.com | WhatsApp Channel | Telegram: t.me/quick_sarkari

Q.6 **A Statutory Body is one that is established by an Act of Parliament or State Legislature. Which of the following is an example of a Statutory Body, making it a Non-Constitutional Body?**

Ans
- ✗ 1. Union Public Service Commission
- ✗ 2. National Commission for Scheduled Castes
- ✓ 3. National Human Rights Commission
- ✗ 4. Election Commission of India

Question ID : **4410091537712**
Option 1 ID : **4410096074101**
Option 2 ID : **4410096074102**
Option 3 ID : **4410096074099**
Option 4 ID : **4410096074100**

Q.7 **What is the primary reason for the occurrence of seasons on Earth?**

Ans
- ✓ 1. Tilt of Earth's axis and its revolution around the Sun
- ✗ 2. Earth's elliptical orbit around the Sun
- ✗ 3. Distance between Earth and the Moon
- ✗ 4. Variations in ocean currents

Question ID : **4410091578845**
Option 1 ID : **4410096236479**
Option 2 ID : **4410096236482**
Option 3 ID : **4410096236480**
Option 4 ID : **4410096236481**

Q.8 **Who played a major role in integrating over 500 princely states into independent India?**

Ans
- ✓ 1. Sardar Vallabhbhai Patel
- ✗ 2. Dr. B.R. Ambedkar
- ✗ 3. Jawaharlal Nehru
- ✗ 4. Mahatma Gandhi

Question ID : **4410091558799**
Option 1 ID : **4410096157584**
Option 2 ID : **4410096157582**
Option 3 ID : **4410096157583**
Option 4 ID : **4410096157581**

QuickSarkari.com | WhatsApp Channel | Telegram: t.me/quick_sarkari

Q.9 The **Anti-Defection Law**, designed to prevent political defections, is contained in which Schedule of the Constitution?

Ans
- ✗ 1. Twelfth Schedule
- ✓ 2. Tenth Schedule
- ✗ 3. Eleventh Schedule
- ✗ 4. Ninth Schedule

Question ID : **4410091537784**
Option 1 ID : **4410096074398**
Option 2 ID : **4410096074395**
Option 3 ID : **4410096074396**
Option 4 ID : **4410096074397**

Q.10 What is the effect on quantity and price when demand increases while supply remains constant?

Ans
- ✗ 1. Quantity decreases and price increases
- ✗ 2. Quantity decreases and price decreases
- ✗ 3. Quantity increases and price decreases
- ✓ 4. Quantity increases and price increases

Question ID : **441009627486**
Option 1 ID : **4410092464097**
Option 2 ID : **4410092464099**
Option 3 ID : **4410092464098**
Option 4 ID : **4410092464096**

Q.11 Which demographic indicator measures the number of live births per 1000 population in a year?

Ans
- ✗ 1. Death Rate
- ✓ 2. Birth Rate
- ✗ 3. Life Expectancy
- ✗ 4. Literacy Rate

Question ID : **4410091586749**
Option 1 ID : **4410096267936**
Option 2 ID : **4410096267938**
Option 3 ID : **4410096267939**
Option 4 ID : **4410096267937**

Q.12 In which direction from India is Bangladesh located?

Ans
- ✓ 1. East
- ✗ 2. South-East
- ✗ 3. North-West
- ✗ 4. South-West

Question ID : **4410091581720**
Option 1 ID : **4410096248105**
Option 2 ID : **4410096248104**
Option 3 ID : **4410096248103**
Option 4 ID : **4410096248106**

QuickSarkari.com | WhatsApp Channel | Telegram: t.me/quick_sarkari

Q.13 Which organization was founded by Swami Dayanand Saraswati in 1875 to reform Hinduism?

Ans
✔ 1. Arya Samaj
✘ 2. Veda Samaj
✘ 3. Dharma Samaj
✘ 4. Prarthana Samaj

Question ID : **4410091551062**
Option 1 ID : **4410096126491**
Option 2 ID : **4410096126493**
Option 3 ID : **4410096126494**
Option 4 ID : **4410096126492**

Q.14 What is the constitutional position of the Council of Ministers in relation to the State Legislature?

Ans
✘ 1. They are collectively responsible to the Legislative Council.
✔ 2. They are collectively responsible to the Legislative Assembly.
✘ 3. They are only responsible to the Chief Minister.
✘ 4. They are individually responsible to the Governor.

Question ID : **4410091537804**
Option 1 ID : **4410096074486**
Option 2 ID : **4410096074483**
Option 3 ID : **4410096074484**
Option 4 ID : **4410096074485**

Q.15 Which tribal revolt of 1831 was led by Budhu Bhagat?

Ans
✘ 1. Khasi Revolt
✔ 2. Kol Uprising
✘ 3. Ramosi Rebellion
✘ 4. Bhil Revolt

Question ID : **4410091544682**
Option 1 ID : **4410096101787**
Option 2 ID : **4410096101790**
Option 3 ID : **4410096101788**
Option 4 ID : **4410096101789**

QuickSarkari.com | WhatsApp Channel | Telegram: t.me/quick_sarkari

Q.16 Which phase of Pradhan Mantri Gram Sadak Yojana (PMGSY) was launched in 2024 to boost rural infrastructure by connecting 25,000 newly eligible habitations?

Ans
✗ 1. Phase III
✗ 2. Phase VI
✓ 3. Phase IV
✗ 4. Phase II

Question ID : **4410091543025**
Option 1 ID : **4410096095153**
Option 2 ID : **4410096095155**
Option 3 ID : **4410096095154**
Option 4 ID : **4410096095152**

Q.17 In which of the following ways does trade liberalisation benefit an open economy?

Ans
✗ 1. By reducing exports to foreign markets
✗ 2. By increasing government intervention in international trade
✗ 3. By imposing restrictions on imports
✓ 4. By promoting competition and efficiency in domestic industries

Question ID : **441009627460**
Option 1 ID : **4410092463994**
Option 2 ID : **4410092463995**
Option 3 ID : **4410092463992**
Option 4 ID : **4410092463993**

Q.18 Under which Article of the Indian Constitution is the Right to Life and Personal Liberty guaranteed— a right that cannot be suspended even during an Emergency?

Ans
✗ 1. Article 19
✗ 2. Article 14
✗ 3. Article 22
✓ 4. Article 21

Question ID : **4410091537748**
Option 1 ID : **4410096074252**
Option 2 ID : **4410096074253**
Option 3 ID : **4410096074254**
Option 4 ID : **4410096074251**

QuickSarkari.com | WhatsApp Channel | Telegram: t.me/quick_sarkari

Q.19 The Santhal Rebellion was led by which brothers?

Ans
✔ 1. Sidhu and Kanhu
✘ 2. Dula and Munda
✘ 3. Birsa and Gaya
✘ 4. Tirot and Puru

Question ID : **4410091547151**
Option 1 ID : **4410096111477**
Option 2 ID : **4410096111480**
Option 3 ID : **4410096111478**
Option 4 ID : **4410096111479**

Q.20 The Poverty Line is generally determined in India by assessing the minimum desirable level of _____.

Ans
✘ 1. Ownership of luxury goods like cars and air conditioners.
✔ 2. Calorie requirement, along with basic expenditure.
✘ 3. Investment in the stock market.
✘ 4. The total number of family members employed in government jobs.

Question ID : **4410091543030**
Option 1 ID : **4410096095174**
Option 2 ID : **4410096095172**
Option 3 ID : **4410096095173**
Option 4 ID : **4410096095175**

Section : **General Awareness1**

Q.1 Zinc reacts with Sulphuric acid to give:

Ans
✔ 1. Zinc Sulphate and Hydrogen
✘ 2. Zinc and Water
✘ 3. Zinc Oxide and Hydrogen
✘ 4. Zinc Sulphate and Water

Question ID : **441009624103**
Option 1 ID : **4410092450547**
Option 2 ID : **4410092450544**
Option 3 ID : **4410092450546**
Option 4 ID : **4410092450545**

QuickSarkari.com | WhatsApp Channel | Telegram: t.me/quick_sarkari

Q.2 Which launch vehicle successfully placed the CMS-03 communication satellite into orbit during its fifth operational mission on November 2, 2025?

Ans
✗ 1. GLV MH III
✓ 2. LVM3
✗ 3. SLV-3
✗ 4. PSLV-XL

Question ID : **4410091580332**
Option 1 ID : **4410096242665**
Option 2 ID : **4410096242663**
Option 3 ID : **4410096242666**
Option 4 ID : **4410096242664**

Q.3 The emergency number deployed for disaster response in India is:

Ans
✗ 1. 102
✗ 2. 108
✗ 3. 999
✓ 4. 112

Question ID : **4410091533013**
Option 1 ID : **4410096055036**
Option 2 ID : **4410096055034**
Option 3 ID : **4410096055035**
Option 4 ID : **4410096055037**

Q.4 Select the INCORRECT statement about Jainism.

Ans
✗ 1. Jainism follows the strict rules of Ahimsa.
✗ 2. Followers of Mahavira are known as Jains.
✓ 3. Mahavira and his followers used only Sanskrit language for teaching and speeches.
✗ 4. Followers of Mahavira have to be absolutely honest.

Question ID : **441009609112**
Option 1 ID : **4410092391568**
Option 2 ID : **4410092391565**
Option 3 ID : **4410092391567**
Option 4 ID : **4410092391566**

Q.5 Which of the Ministries introduced the Appropriation (No.4) Bill, 2025 in the Lok Sabha/Rajya Sabha?

Ans
✗ 1. Ministry of Labour and Employment
✓ 2. Ministry of Finance
✗ 3. Ministry of Home Affairs
✗ 4. Ministry of Law and Justice

Question ID : **4410091570719**
Option 1 ID : **4410096203860**
Option 2 ID : **4410096203859**
Option 3 ID : **4410096203861**
Option 4 ID : **4410096203862**

Q.6 The SI unit of electrical conductance is the siemens (S). It is equal to _____.

Ans
✗ 1. 0.01 Ω
✗ 2. 1 Ω
✓ 3. 1 Ω-1
✗ 4. 100 Ω

Question ID : **4410091316967**
Option 1 ID : **4410095199437**
Option 2 ID : **4410095199435**
Option 3 ID : **4410095199434**
Option 4 ID : **4410095199436**

Q.7 As of December 2025, how many total Ramsar Sites are there in India?

Ans
✗ 1. 83
✗ 2. 26
✗ 3. 48
✓ 4. 96

Question ID : **4410091533086**
Option 1 ID : **4410096055305**
Option 2 ID : **4410096055303**
Option 3 ID : **4410096055304**
Option 4 ID : **4410096055302**

Q.8 When teams in a tug-of-war game pull with different amounts of force, the forces are _____.

Ans
✗ 1. Frictional
✗ 2. Equal
✗ 3. Balanced
✓ 4. Unbalanced

Question ID : **4410091543728**
Option 1 ID : **4410096097972**
Option 2 ID : **4410096097973**
Option 3 ID : **4410096097971**
Option 4 ID : **4410096097970**

Q.9 Jat-Jatin is a folk dance that depicts the romantic life and quarrels between men and women. Which state is it mainly from?

Ans
✗ 1. Himachal Pradesh
✗ 2. Uttarakhand
✓ 3. Bihar
✗ 4. Assam

Question ID : **4410091543141**
Option 1 ID : **4410096095607**
Option 2 ID : **4410096095605**
Option 3 ID : **4410096095604**
Option 4 ID : **4410096095606**

QuickSarkari.com | WhatsApp Channel | Telegram: t.me/quick_sarkari

Q.10 In July 2025, the Indian Coast Guard commenced construction of its first indigenously built Air Cushion Vehicle (ACV) at which of the following locations?

Ans
✗ 1. Kochi
✗ 2. Chennai
✗ 3. Visakhapatnam
✓ 4. Goa

Question ID : **4410091570823**
Option 1 ID : **4410096204273**
Option 2 ID : **4410096204270**
Option 3 ID : **4410096204271**
Option 4 ID : **4410096204272**

Q.11 "*Mahe*", the first of eight Anti-Submarine Warfare Shallow Watercrafts delivered to the Indian Navy in October 2025, was built at which of the following locations?

Ans
✗ 1. Dadra and Nagar Haveli
✗ 2. Andaman and Nicobar Islands
✓ 3. Kochi
✗ 4. Lakshadweep

Question ID : **4410091570872**
Option 1 ID : **4410096204473**
Option 2 ID : **4410096204472**
Option 3 ID : **4410096204470**
Option 4 ID : **4410096204471**

Q.12 With reference to the Mines and Minerals (Development and Regulation) Amendment Bill, 2025, which one of the following changes was introduced to strengthen funding support for mineral exploration and development?

Ans
✓ 1. Expansion of the National Mineral Exploration Trust to cover development work
✗ 2. Reduction in mandatory royalty contributions to a central mineral trust
✗ 3. Limitation of trust operations to selected non-strategic minerals
✗ 4. Restriction of trust funding to preliminary exploration activities only

Question ID : **4410091570695**
Option 1 ID : **4410096203765**
Option 2 ID : **4410096203763**
Option 3 ID : **4410096203766**
Option 4 ID : **4410096203764**

QuickSarkari.com | WhatsApp Channel | Telegram: t.me/quick_sarkari

Q.13 Where is Indian Navy's Survey Vessel Large (SVL) INS Ikshak based, after being commissioned there on November 6, 2025?

Ans
✗ 1. Andaman & Nicobar Command
✗ 2. Eastern Naval Command
✓ 3. Southern Naval Command
✗ 4. Western Naval Command

Question ID : **4410091533833**
Option 1 ID : **4410096058545**
Option 2 ID : **4410096058543**
Option 3 ID : **4410096058546**
Option 4 ID : **4410096058544**

Q.14 Approved in July 2025, which policy aims to elevate India as a global sporting nation?

Ans
✗ 1. Panchayat Yuva Krida Aur Khel Abhiyan
✓ 2. Khelo Bharat Niti
✗ 3. Khelo India Scheme
✗ 4. Target Olympic Podium Scheme

Question ID : **4410091533597**
Option 1 ID : **4410096057429**
Option 2 ID : **4410096057428**
Option 3 ID : **4410096057427**
Option 4 ID : **4410096057430**

Q.15 In 2025, Abhijit Banerjee was appointed as an advisor for which Indian state's Vision Board?

Ans
✗ 1. Tamil Nadu
✗ 2. Karnataka
✗ 3. Gujarat
✓ 4. Telangana

Question ID : **4410091533514**
Option 1 ID : **4410096057053**
Option 2 ID : **4410096057052**
Option 3 ID : **4410096057055**
Option 4 ID : **4410096057054**

QuickSarkari.com | WhatsApp Channel | Telegram: t.me/quick_sarkari

Q.16 Which of the following national parks was declared as the 58th Tiger Reserve in March 2025?

Ans
✔ 1. Madhav National Park, Madhya Pradesh
✘ 2. Ramgarh Vishdhari Tiger Reserve, Rajasthan
✘ 3. Ratapani Tiger Resereve, Madhya Pradesh
✘ 4. Ranipur Tiger Reserve, Uttar Pradesh

Question ID : **4410091533069**
Option 1 ID : **4410096055237**
Option 2 ID : **4410096055234**
Option 3 ID : **4410096055235**
Option 4 ID : **4410096055236**

Q.17 In 2025, the International Day of Peace (September 21) was observed with which theme?

Ans
✔ 1. Act Now for a Peaceful World
✘ 2. Peace Through Dialogue
✘ 3. Building Bridges for Peace
✘ 4. Harmony and Cooperation

Question ID : **4410091580761**
Option 1 ID : **4410096244375**
Option 2 ID : **4410096244374**
Option 3 ID : **4410096244377**
Option 4 ID : **4410096244376**

Q.18 Which international personality was awarded the 2025 Nobel Peace Prize for the tireless work promoting democratic rights for the people of Venezuela?

Ans
✔ 1. Maria Corina Machado
✘ 2. Michel H. Devoret
✘ 3. Greta Thunberg
✘ 4. António Guterres

Question ID : **4410091580755**
Option 1 ID : **4410096244352**
Option 2 ID : **4410096244351**
Option 3 ID : **4410096244353**
Option 4 ID : **4410096244350**

Q.19 Which of the following Vedas is a source of Vedic sacrifices?

Ans
✘ 1. Samveda
✘ 2. Atharvaveda
✘ 3. Rigveda
✔ 4. Yajurveda

Question ID : **441009605912**
Option 1 ID : **4410092378767**
Option 2 ID : **4410092378768**
Option 3 ID : **4410092378766**
Option 4 ID : **4410092378765**

Q.20 Who won the 2025 International Booker Prize?

Ans
✗ 1. Arundhati Roy
✗ 2. Aruna Roy
✗ 3. Amish Tripathi
✓ 4. Banu Mushtaq and Deepa Bhasthi

Question ID : **4410091533454**
Option 1 ID : **4410096056770**
Option 2 ID : **4410096056772**
Option 3 ID : **4410096056773**
Option 4 ID : **4410096056771**

Section : **Arithmetical and Numerical Ability**

Q.1 The population of a village was 170000. It increased by 15% in the first year and increased by 20% in the second year. Its population after two years is _____.8247

Ans
✗ 1. 229500
✗ 2. 195500
✗ 3. 204000
✓ 4. 234600

Question ID : **441009859529**
Option 1 ID : **4410093391091**
Option 2 ID : **4410093391089**
Option 3 ID : **4410093391090**
Option 4 ID : **4410093391088**

Q.2 The HCF of two numbers is 116, and their LCM is 696. If one of the numbers is 348, find the other number.

Ans
✓ 1. 232
✗ 2. 221
✗ 3. 244
✗ 4. 348

Question ID : **4410091498130**
Option 1 ID : **4410095917563**
Option 2 ID : **4410095917562**
Option 3 ID : **4410095917564**
Option 4 ID : **4410095917565**

QuickSarkari.com | WhatsApp Channel | Telegram: t.me/quick_sarkari

Q.3 A student scores 80 marks in a test weighted at 40% and 90 marks in another test weighted at 60%. What is the weighted average score?

Ans
✗ 1. 82
✗ 2. 84
✗ 3. 89
✓ 4. 86

Question ID : **4410091510588**
Option 1 ID : **4410095966532**
Option 2 ID : **4410095966533**
Option 3 ID : **4410095966535**
Option 4 ID : **4410095966534**

Q.4 Find the simple interest (in ₹) on ₹3,000 as a sum borrowed at 6% per year rate of interest for 3 years.1698

Ans
✗ 1. 580
✓ 2. 540
✗ 3. 480
✗ 4. 500

Question ID : **441009852980**
Option 1 ID : **4410093364893**
Option 2 ID : **4410093364892**
Option 3 ID : **4410093364894**
Option 4 ID : **4410093364895**

QuickSarkari.com | WhatsApp Channel | Telegram: t.me/quick_sarkari

Q.5 The bar graph below shows the number of books sold by a bookstore from Monday to Friday. What is the average number of books sold per day from Monday to Friday?

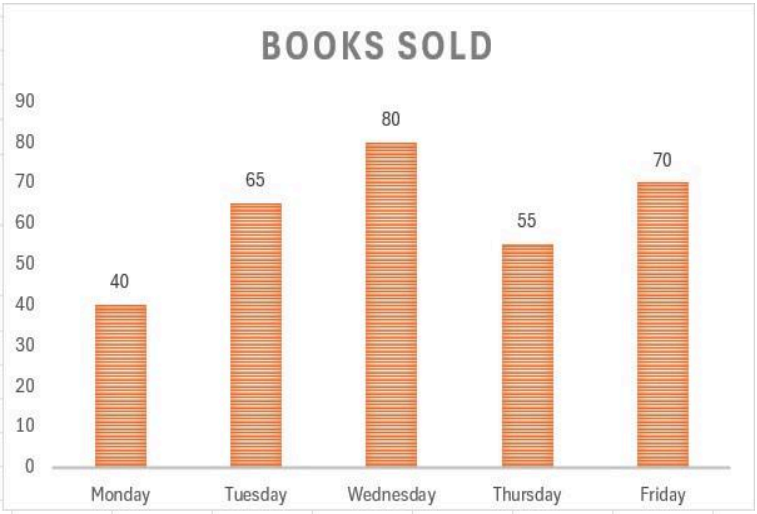

Ans
✗ 1. 65
✗ 2. 70
✓ 3. 62
✗ 4. 68

Question ID : **4410091494189**
Option 1 ID : **4410095902373**
Option 2 ID : **4410095902375**
Option 3 ID : **4410095902372**
Option 4 ID : **4410095902374**

Q.6 Shamik invested some money in a bank at 9% per annum rate of interest. What would be the corresponding simple interest (in ₹) if after 2 years, Shamik got ₹209 as compound interest, considering annual compounding?
8327

Ans
✓ 1. 200
✗ 2. 195
✗ 3. 215
✗ 4. 210

Question ID : **441009571901**
Option 1 ID : **4410092242724**
Option 2 ID : **4410092242725**
Option 3 ID : **4410092242727**
Option 4 ID : **4410092242726**

QuickSarkari.com | WhatsApp Channel | Telegram: t.me/quick_sarkari

Q.7 A student has an average score of 78 marks across 5 subjects. If the student scored 84, 65, 74, and 72 in four of the subjects, determine the score in the fifth subject.

Ans
✗ 1. 93
✗ 2. 90
✓ 3. 95
✗ 4. 85

Question ID : **4410091544171**
Option 1 ID : **4410096099785**
Option 2 ID : **4410096099784**
Option 3 ID : **4410096099786**
Option 4 ID : **4410096099783**

Q.8 In a test, B got 52 marks while A got 80 marks, out of 120 maximum marks. What percentage of A's marks was B's marks?

Ans
✓ 1. 65%
✗ 2. 66.67%
✗ 3. 120%
✗ 4. 153.85%

Question ID : **441009857269**
Option 1 ID : **4410093382048**
Option 2 ID : **4410093382051**
Option 3 ID : **4410093382050**
Option 4 ID : **4410093382049**

Q.9 Find a in the following expression:

$$[\frac{8}{9} \div \frac{5}{12} \times a] - \frac{2}{3} = (5 - \frac{7}{9}) of \frac{12}{15}$$

Ans
✓ 1. $\frac{91}{48}$
✗ 2. $\frac{30}{17}$
✗ 3. $\frac{-31}{19}$
✗ 4. $\frac{-32}{23}$

Question ID : **4410091525187**
Option 1 ID : **4410096023938**
Option 2 ID : **4410096023940**
Option 3 ID : **4410096023939**
Option 4 ID : **4410096023941**

QuickSarkari

Q.10 The following pie charts show the percentage distribution of employees at worker level and officer level in 5 different cement industries: A, B, C, D and E of a state. The total number of employees at the worker level is 75,000 and at the officer level is 28,000. Find the total number of employees at worker and officer level in industry D.

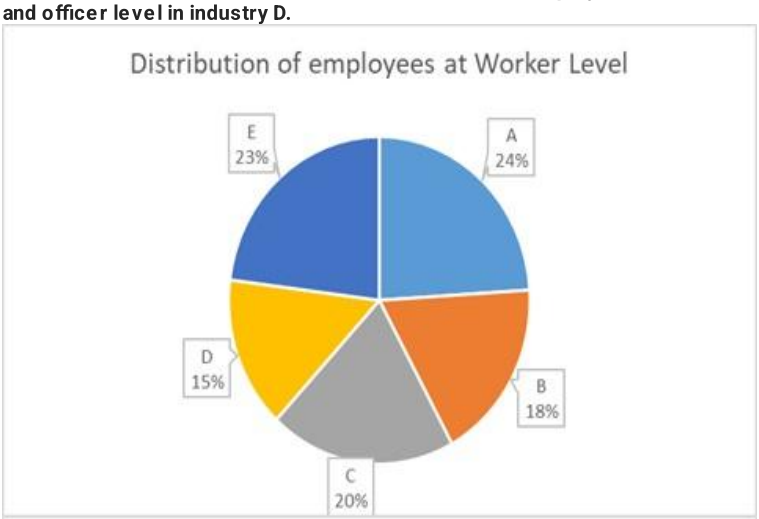

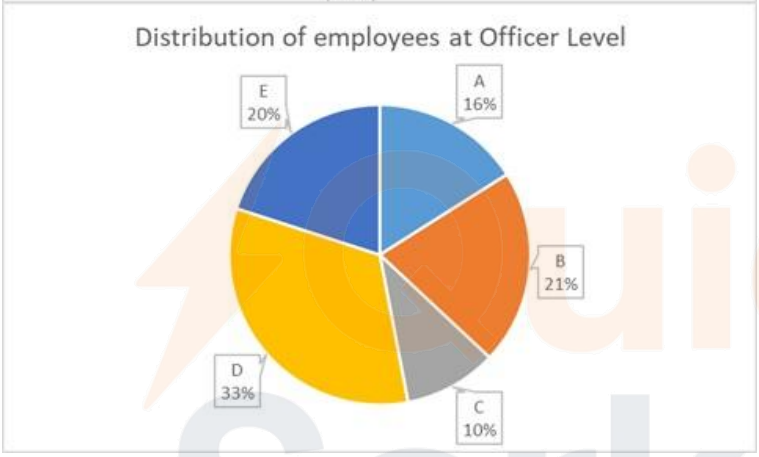

Ans
✔ 1. 20,490
✘ 2. 16,850
✘ 3. 19,380
✘ 4. 22,850

Question ID : **4410091523530**
Option 1 ID : **4410096017375**
Option 2 ID : **4410096017377**
Option 3 ID : **4410096017376**
Option 4 ID : **4410096017378**

QuickSarkari.com | WhatsApp Channel | Telegram: t.me/quick_sarkari

Q.11 Among the following, find the number which is coprime to 1296.

Ans
1. $22^2 + 14^2$
2. (250 × 2) + 29
3. $2^4 + 3^4 + 1^4$
4. 1521

Question ID : **4410091524946**
Option 1 ID : **4410096022986**
Option 2 ID : **4410096022983**
Option 3 ID : **4410096022984**
Option 4 ID : **4410096022985**

Q.12 Simplify: $\frac{1}{2} \times [24 \div \{5 + (8 \div 2) - 3\}] + 4$

Ans
1. 6
2. 4
3. 0
4. 10

Question ID : **4410091498167**
Option 1 ID : **4410095917704**
Option 2 ID : **4410095917703**
Option 3 ID : **4410095917702**
Option 4 ID : **4410095917705**

Q.13 In a company, the average salary of the senior employees is ₹60,000 per month, and the average salary of the junior employees is ₹45,000 per month. The average salary of all employees is ₹54,000 per month. If there are 120 employees in total, find the number of senior employees in the company.

Ans
1. 56
2. 72
3. 60
4. 68

Question ID : **4410091494129**
Option 1 ID : **4410095902136**
Option 2 ID : **4410095902139**
Option 3 ID : **4410095902137**
Option 4 ID : **4410095902138**

QuickSarkari.com | WhatsApp Channel | Telegram: t.me/quick_sarkari

Q.14 Which is the smallest positive number that should be subtracted from 83 to make it divisible by 4?

Ans
✗ 1. 1
✗ 2. 7
✓ 3. 3
✗ 4. 2

Question ID : **4410091510650**
Option 1 ID : **4410095966656**
Option 2 ID : **4410095966658**
Option 3 ID : **4410095966659**
Option 4 ID : **4410095966657**

Q.15 Simplify: $\frac{\sqrt[3]{1728}}{\sqrt[4]{4096}} \times \frac{4}{36} \times 120$

Ans
✓ 1. 20
✗ 2. 30
✗ 3. 26
✗ 4. 25

Question ID : **441009575777**
Option 1 ID : **4410092258228**
Option 2 ID : **4410092258230**
Option 3 ID : **4410092258229**
Option 4 ID : **4410092258231**

Q.16 Convert the mixed recurring decimal 0.5181818... into its vulgar fraction form.

Ans
✗ 1. $\frac{7}{11}$
✓ 2. $\frac{57}{110}$
✗ 3. $\frac{26}{101}$
✗ 4. $\frac{3}{7}$

Question ID : **4410091494252**
Option 1 ID : **4410095902613**
Option 2 ID : **4410095902615**
Option 3 ID : **4410095902614**
Option 4 ID : **4410095902612**

QuickSarkari.com | WhatsApp Channel | Telegram: t.me/quick_sarkari

Q.17 Mahesh had ₹1,312 with him. He divided this amount between his sons, Vijay and Ajay, and asked them to invest their respective shares at a rate of 5% per annum, compounded annually. Vijay invested his share for 19 years, and Ajay invested his share for 20 years. It was observed that both received equal amounts at the end of their respective periods. How much (in ₹) did Mahesh give to Ajay?

Ans
✔ 1. 640
✘ 2. 672
✘ 3. 772
✘ 4. 490

Question ID : **441009573636**
Option 1 ID : **4410092249664**
Option 2 ID : **4410092249665**
Option 3 ID : **4410092249667**
Option 4 ID : **4410092249666**

Q.18 The HCF of two numbers is 12 and their LCM is 180. If one of the numbers is 36, what is the other number?

Ans
✘ 1. 56
✘ 2. 66
✘ 3. 50
✔ 4. 60

Question ID : **4410091510957**
Option 1 ID : **4410095967872**
Option 2 ID : **4410095967871**
Option 3 ID : **4410095967873**
Option 4 ID : **4410095967870**

Q.19 Two types of tea costing ₹120 per kg and ₹180 per kg are mixed in the ratio 1 : 2; what is the cost price per kilogram of the mixture?

Ans
✘ 1. ₹150/kg
✔ 2. ₹160/kg
✘ 3. ₹170/kg
✘ 4. ₹166/kg

Question ID : **4410091510626**
Option 1 ID : **4410095966566**
Option 2 ID : **4410095966564**
Option 3 ID : **4410095966565**
Option 4 ID : **4410095966567**

QuickSarkari.com | WhatsApp Channel | Telegram: t.me/quick_sarkari

Q.20 Simplify: $\sqrt[3]{27\times 8}+2^3$.

Ans
✗ 1. 8
✓ 2. 14
✗ 3. 12
✗ 4. 10

Question ID : **4410091556632**
Option 1 ID : **4410096149102**
Option 2 ID : **4410096149105**
Option 3 ID : **4410096149104**
Option 4 ID : **4410096149103**

Section : **Arithmetical and Numerical Ability1**

Q.1 **The marked price of a motorbike is ₹1,80,000. The company gives a discount of 3% on ₹1,00,000 and 4% discount on the remaining amount. Find the selling price of the bike.**

Ans
✗ 1. ₹1,76,800
✓ 2. ₹1,73,800
✗ 3. ₹1,77,000
✗ 4. ₹1,75,250

Question ID : **4410091529197**
Option 1 ID : **4410096039892**
Option 2 ID : **4410096039894**
Option 3 ID : **4410096039891**
Option 4 ID : **4410096039893**

Q.2 **A hemispherical bowl is composed of metal that is 1 cm thick and has an internal radius of 12 cm. Determine the bowl's exterior curved surface area. (given that $\pi = 3.14$)**

Ans
✗ 1. 1052.23 cm2
✗ 2. 1056.48 cm2
✗ 3. 1058.56 cm2
✓ 4. 1061.32 cm2

Question ID : **4410091578200**
Option 1 ID : **4410096233875**
Option 2 ID : **4410096233876**
Option 3 ID : **4410096233877**
Option 4 ID : **4410096233878**

QuickSarkari

Q.3 Divide ₹35,000 into three parts in such a way that half of the first part, one-fourth of the second part and one-eighth of the third part are equal. What is the value (in ₹) of the first part?

Ans
✗ 1. 5,300
✗ 2. 4,800
✓ 3. 5,000
✗ 4. 5,100

Question ID : **441009546008**
Option 1 ID : **4410092139430**
Option 2 ID : **4410092139431**
Option 3 ID : **4410092139428**
Option 4 ID : **4410092139429**

Q.4 Two runners, P and Q, start at the same point on a circular track of length 1000 m and run in the same direction with speeds 10 m/s and 6 m/s. Find the time of their first meeting after the start and how many times will they meet in 15 minutes?

Ans
✓ 1. 250 seconds, 3 times
✗ 2. 325 seconds, 5 times
✗ 3. 300 seconds, 2 times
✗ 4. 225 seconds, 6 times

Question ID : **4410091529278**
Option 1 ID : **4410096040222**
Option 2 ID : **4410096040220**
Option 3 ID : **4410096040219**
Option 4 ID : **4410096040221**

Q.5 P and Q can do a piece of work in 40 and 50 days, respectively. They begin the work together, but P leaves after some days and Q finishes the remaining work in 32 days. After how many days did P leave?

Ans
✗ 1. 7 days
✗ 2. 10 days
✓ 3. 8 days
✗ 4. 9 days

Question ID : **4410091529255**
Option 1 ID : **4410096040121**
Option 2 ID : **4410096040120**
Option 3 ID : **4410096040122**
Option 4 ID : **4410096040119**

QuickSarkari.com | WhatsApp Channel | Telegram: t.me/quick_sarkari

Q.6 A car makes a round trip between two cities. It travels from the first city to the second at a steady speed of 60 km/h and returns immediately along the same route at 40 km/h. What is the average speed in meters per second for the entire round trip?

Ans
1. $14.5\ \mathrm{m/s}$
2. $\frac{48}{11}\ \mathrm{m/s}$
3. $\frac{40}{3}\ \mathrm{m/s}$
4. $12\ \mathrm{m/s}$

Question ID : **4410091498527**
Option 1 ID : **4410095919030**
Option 2 ID : **4410095919031**
Option 3 ID : **4410095919032**
Option 4 ID : **4410095919029**

Q.7 A farmer has a triangular field with a base of 42 meters and a height of 32 meters. If the cost of cultivating the field is ₹15.6 per square meter, what will be the total cost of cultivation?

Ans
1. ₹10,488.60
2. ₹10,445.40
3. ₹10,483.20
4. ₹10,474.28

Question ID : **4410091566423**
Option 1 ID : **4410096187099**
Option 2 ID : **4410096187096**
Option 3 ID : **4410096187098**
Option 4 ID : **4410096187097**

Q.8 The volume of a cuboid is thrice that of a cube. If the dimensions of the cuboid are 54 cm, 36 cm and 9 cm, then find the lateral surface area of the cube.

Ans
1. 1269 cm2
2. 1296 cm2
3. 1692 cm2
4. 1962 cm2

Question ID : **4410091542457**
Option 1 ID : **4410096092933**
Option 2 ID : **4410096092934**
Option 3 ID : **4410096092932**
Option 4 ID : **4410096092931**

QuickSarkari

Q.9 A and B complete a work in 6 days. If A alone can do it in 7 days, then B alone can do it half of the same work in _____(days).4082

Ans
✗ 1. 63
✓ 2. 21
✗ 3. 84
✗ 4. 42

Question ID : **441009897395**
Option 1 ID : **4410093543652**
Option 2 ID : **4410093543650**
Option 3 ID : **4410093543653**
Option 4 ID : **4410093543651**

Q.10 A cylindrical water tank has a radius of 14 cm and a height of 40 cm. Using $\pi = \frac{22}{7}$, calculate the volume of the tank.

Ans
✗ 1. 23,620 cm3
✗ 2. 23,564 cm3
✗ 3. 24,200 cm3
✓ 4. 24,640 cm3

Question ID : **4410091499604**
Option 1 ID : **4410095923318**
Option 2 ID : **4410095923319**
Option 3 ID : **4410095923320**
Option 4 ID : **4410095923321**

Q.11 A cuboid-shaped storage box measures 30 cm in length, 20 cm in width, and 20 cm in height. Find the number of books that can fit within the box, each with a volume of 300 cm^3.

Ans
✗ 1. 32
✓ 2. 40
✗ 3. 36
✗ 4. 20

Question ID : **4410091578193**
Option 1 ID : **4410096233845**
Option 2 ID : **4410096233847**
Option 3 ID : **4410096233846**
Option 4 ID : **4410096233844**

QuickSarkari.com | WhatsApp Channel | Telegram: t.me/quick_sarkari

Q.12 To prepare 8 glasses of lemonade, 376 g of sugar is required. How much sugar will be needed to make 15 glasses of lemonade?

Ans
✔ 1. 705 g
✘ 2. 752 g
✘ 3. 728 g
✘ 4. 658 g

Question ID : **4410091566389**
Option 1 ID : **4410096186961**
Option 2 ID : **4410096186963**
Option 3 ID : **4410096186962**
Option 4 ID : **4410096186960**

Q.13 If both the radius and height of a right circular cone are increased by 15%, find the percentage of volume increased. (Rounded off to two decimal places.)

Ans
✘ 1. 50.02%
✔ 2. 52.09%
✘ 3. 59.02%
✘ 4. 50.09%

Question ID : **4410091542441**
Option 1 ID : **4410096092867**
Option 2 ID : **4410096092868**
Option 3 ID : **4410096092869**
Option 4 ID : **4410096092870**

Q.14 What is the third proportional to 16 and 24?

Ans
✘ 1. 38
✘ 2. 12
✔ 3. 36
✘ 4. 40

Question ID : **4410091512974**
Option 1 ID : **4410095975927**
Option 2 ID : **4410095975928**
Option 3 ID : **4410095975929**
Option 4 ID : **4410095975926**

QuickSarkari.com | WhatsApp Channel | Telegram: t.me/quick_sarkari

Q.15 A rectangular field has a perimeter of 100 meters. If the length is 10 meters more than the breadth, find the area of the field.

Ans
✗ 1. 478 m2
✗ 2. 420 m2
✗ 3. 556 m2
✓ 4. 600 m2

Question ID : **4410091499510**
Option 1 ID : **4410095922947**
Option 2 ID : **4410095922946**
Option 3 ID : **4410095922948**
Option 4 ID : **4410095922949**

Q.16 A and B invested in a business in the ratio 5:7. If the total profit is ₹45,000 and 3% of the profit is donated to an old-age home, then what is B's share?

Ans
✓ 1. ₹25,462.50
✗ 2. ₹25,554.50
✗ 3. ₹25,280.50
✗ 4. ₹25,567.50

Question ID : **4410091566398**
Option 1 ID : **4410096186997**
Option 2 ID : **4410096186998**
Option 3 ID : **4410096186996**
Option 4 ID : **4410096186999**

Q.17 The list price of a home theatre is ₹40,000. It is sold to a retailer after two successive discounts of 4% and 10%. The retailer wants to earn a profit of 50% on his cost price after allowing a 46% discount (on its new list price) to the customer. At what price should he list the home theatre?

Ans
✗ 1. ₹96,179
✗ 2. ₹95,827
✗ 3. ₹96,103
✓ 4. ₹96,000

Question ID : **441009915761**
Option 1 ID : **4410093617296**
Option 2 ID : **4410093617297**
Option 3 ID : **4410093617298**
Option 4 ID : **4410093617295**

QuickSarkari.com | WhatsApp Channel | Telegram: t.me/quick_sarkari

Q.18 The slant height of a cone is 13 cm and its radius is 5 cm. Find the volume of the cone.

Ans
✔ 1. 100πcm3
✘ 2. 112πcm3
✘ 3. 88πcm3
✘ 4. 78πcm3

Question ID : **4410091499523**
Option 1 ID : **4410095923000**
Option 2 ID : **4410095923001**
Option 3 ID : **4410095922999**
Option 4 ID : **4410095922998**

Q.19 A man bought an article for ₹1650 and sold it at 16% loss. Find the selling price.

Ans
✘ 1. ₹1324
✘ 2. ₹1360
✔ 3. ₹1386
✘ 4. ₹1392

Question ID : **4410091566382**
Option 1 ID : **4410096186932**
Option 2 ID : **4410096186933**
Option 3 ID : **4410096186934**
Option 4 ID : **4410096186935**

Q.20 A shopkeeper bought six identical mobile phones for a total cost of ₹75,000, and sold two of them for a total of ₹50,000. Find the percentage of gain made in the sale of these two mobiles.

Ans
✘ 1. 101%
✘ 2. 98%
✘ 3. 97%
✔ 4. 100%

Question ID : **441009577785**
Option 1 ID : **4410092266269**
Option 2 ID : **4410092266267**
Option 3 ID : **4410092266268**
Option 4 ID : **4410092266266**

Section : **English Language and Comprehension**

QuickSarkari.com | WhatsApp Channel | Telegram: t.me/quick_sarkari

Q.1 Choose the option that best replaces the underlined text.

After years of hard work, she achieved financial freedom and the state of being able to pay one's debts.

Ans
✗ 1. liberty
✗ 2. security
✗ 3. affluence
✓ 4. solvency

Question ID : **4410091506695**
Option 1 ID : **4410095951131**
Option 2 ID : **4410095951132**
Option 3 ID : **4410095951133**
Option 4 ID : **4410095951130**

Q.2 Select a specific word from the options below to replace the underlined group of words in the following sentence.

His explanation was intentionally unclear and could be interpreted in more than one way.

Ans
✗ 1. Cryptic
✗ 2. Vague
✗ 3. Obscure
✓ 4. Ambiguous

Question ID : **4410091627051**
Option 1 ID : **4410096426512**
Option 2 ID : **4410096426510**
Option 3 ID : **4410096426513**
Option 4 ID : **4410096426511**

Q.3 Select a specific word from the options below to replace the underlined group of words in the following sentence.

She has a fear of being in closed or crowded spaces.

Ans
✗ 1. hydrophobia
✗ 2. acrophobia
✗ 3. agoraphobia
✓ 4. claustrophobia

Question ID : **4410091627013**
Option 1 ID : **4410096426360**
Option 2 ID : **4410096426361**
Option 3 ID : **4410096426358**
Option 4 ID : **4410096426359**

QuickSarkari

Q.4 Select the most appropriate option to fill in the blank.

The _____ weather forced everyone to stay indoors.

Ans
1. enjoyable
2. pleasant
3. stormy
4. refreshing

Question ID : **4410091508459**
Option 1 ID : **4410095958459**
Option 2 ID : **4410095958457**
Option 3 ID : **4410095958456**
Option 4 ID : **4410095958458**

Q.5 Choose the option that expresses the given sentence in passive voice.

The authorities are implementing stricter regulations to curb environmental pollution.

Ans
1. Stricter regulations are being implemented by the authorities to curb environmental pollution.
2. Stricter regulations are implemented by the authorities to curb environmental pollution.
3. Stricter regulations were implemented by the authorities to curb environmental pollution.
4. Stricter regulations have been implemented by the authorities to curb environmental pollution.

Question ID : **4410091509393**
Option 1 ID : **4410095962232**
Option 2 ID : **4410095962234**
Option 3 ID : **4410095962233**
Option 4 ID : **4410095962235**

Q.6 In the debate competition, Anika responded to every question so _____ that even the judges were impressed by her clarity and confidence, despite facing challenging and unexpected counterpoints.

Ans
1. confidently
2. hesitantly
3. nervously
4. ambiguously

Question ID : **4410091627014**
Option 1 ID : **4410096426362**
Option 2 ID : **4410096426363**
Option 3 ID : **4410096426365**
Option 4 ID : **4410096426364**

Q.7 Fill in the blank with the most appropriate option.
The meeting started _____ than expected because everyone arrived on time.

Ans
✔ 1. earlier
✘ 2. lately
✘ 3. eventually
✘ 4. soon

Question ID : **4410091506802**
Option 1 ID : **4410095951566**
Option 2 ID : **4410095951569**
Option 3 ID : **4410095951568**
Option 4 ID : **4410095951567**

Q.8 Choose the most suitable option to complete the sentence meaningfully.

The rare painting, hidden in the archives for decades, was finally found only _____ a careful and detailed search by the museum staff.

Ans
✔ 1. through
✘ 2. over
✘ 3. beneath
✘ 4. across

Question ID : **4410091627067**
Option 1 ID : **4410096426574**
Option 2 ID : **4410096426575**
Option 3 ID : **4410096426577**
Option 4 ID : **4410096426576**

Q.9 In the given question, a sentence is divided into different segments and the first segment (S1) is fixed. Choose the most appropriate order from the options given which best rearranges the remaining segments to form a coherent sentence.

S1: Although the expedition to the Arctic
P: the team of scientists managed
Q: to collect valuable data about the melting
R: ice sheets and their impact on rising sea levels
S: was extremely perilous and exhausting,

Ans
✔ 1. SPQR
✘ 2. RPSQ
✘ 3. QPRS
✘ 4. PQSR

Question ID : **4410091506748**
Option 1 ID : **4410095951339**
Option 2 ID : **4410095951340**
Option 3 ID : **4410095951338**
Option 4 ID : **4410095951341**

QuickSarkari.com | WhatsApp Channel | Telegram: t.me/quick_sarkari

Q.10 Choose the option that best replaces the underlined text.

The teacher appreciated Neha's <u>ability to quickly understand and learn things.</u>

Ans
✗ 1. wisdom
✗ 2. intelligence
✗ 3. knowledge
✓ 4. aptitude

Question ID : **4410091506613**
Option 1 ID : **4410095950809**
Option 2 ID : **4410095950808**
Option 3 ID : **4410095950810**
Option 4 ID : **4410095950807**

Q.11 Choose the most suitable option to complete the sentence meaningfully.

Her recent success can be attributed ____ her consistent hard work and dedication.

Ans
✓ 1. to
✗ 2. with
✗ 3. for
✗ 4. by

Question ID : **4410091627168**
Option 1 ID : **4410096426980**
Option 2 ID : **4410096426979**
Option 3 ID : **4410096426978**
Option 4 ID : **4410096426981**

Q.12 The sentences below, when arranged coherently, form a paragraph about a historical event. The first and last sentences are fixed. Choose the option that presents the correct sequence of the middle sentences (A, B, C, D) to complete the paragraph.

Fixed First Sentence: The Industrial Revolution marked a profound shift from agrarian societies to industrialized ones.
(A) This mechanization drastically increased production in textiles and other goods.
(B) It began in Britain in the late 18th century with the invention of steam power and new machinery.
(C) Consequently, people moved from rural areas to cities in search of factory work.
(D) These technological changes required new forms of labor and organization.
Fixed Last Sentence: Thus, the social and economic landscape of the world was forever changed.

Ans
✗ 1. DBCA
✗ 2. ACBD
✗ 3. CADB
✓ 4. BADC

Question ID : **4410091626751**
Option 1 ID : **4410096425365**
Option 2 ID : **4410096425367**
Option 3 ID : **4410096425364**
Option 4 ID : **4410096425366**

Q.13 The parts labeled (OPQRST) form a single sentence when rearranged correctly. Choose the correct sequence to make a meaningful sentence.

O) Although the novel was criticized
P) for its unconventional narrative structure
Q) it has since been recognized
R) as a groundbreaking work
S) that influenced a generation of writers
T) upon its initial release,

Ans
✗ 1. QRSOPT
✗ 2. OTPRQS
✓ 3. OPTQRS
✗ 4. OPQRST

Question ID : **4410091626961**
Option 1 ID : **4410096426163**
Option 2 ID : **4410096426165**
Option 3 ID : **4410096426162**
Option 4 ID : **4410096426164**

Q.14 In the given question, a statement divided into different segments is given. Rearrange all the segments to form a coherent statement.

Of governing people (P) / Politics is the art (Q) / And solving issues (R) / And shape its future (S) / That affect a nation (T)

Ans
✗ 1. PQTRS
✗ 2. QTSRP
✗ 3. PRQTS
✓ 4. QPRTS

Question ID : **4410091500321**
Option 1 ID : **4410095926149**
Option 2 ID : **4410095926150**
Option 3 ID : **4410095926148**
Option 4 ID : **4410095926151**

Q.15 In the following question, you are required to fill in the blank by choosing the word that best completes the given sentence.

The ancient scrolls, though long forgotten in the dusty basement, were brought to light only _____ meticulous cross-checking of old records, catalogues, and handwritten notes by the dedicated historian.

Ans
✓ 1. through
✗ 2. across
✗ 3. beneath
✗ 4. over

Question ID : **4410091627114**
Option 1 ID : **4410096426762**
Option 2 ID : **4410096426764**
Option 3 ID : **4410096426765**
Option 4 ID : **4410096426763**

QuickSarkari.com | WhatsApp Channel | Telegram: t.me/quick_sarkari

Q.16 In the given question, a statement divided into different segments is given. Rearrange all the segments to form a coherent statement.

Was covered with cream (P) / The birthday cake (Q) / And colorful sprinkles (R) / And tasted delicious (S) / Shaped like stars (T)

Ans
1. QRSTP
2. QPRTS
3. TPQRS
4. TSQRP

Question ID : **4410091500317**
Option 1 ID : **4410095926133**
Option 2 ID : **4410095926132**
Option 3 ID : **4410095926135**
Option 4 ID : **4410095926134**

Q.17 Select a specific word from the options below to replace the underlined group of words in the following sentence.

Using "the Crown" to refer to the king or queen and the government of a country is an example of a common figure of speech.

Ans
1. Metonymy
2. Euphemism
3. Allegory
4. Synecdoche

Question ID : **4410091627093**
Option 1 ID : **4410096426678**
Option 2 ID : **4410096426680**
Option 3 ID : **4410096426681**
Option 4 ID : **4410096426679**

QuickSarkari.com | WhatsApp Channel | Telegram: t.me/quick_sarkari

Q.18 The sentences below form a coherent argument when ordered correctly. The first sentence introduces the topic, and the last sentence concludes it. Choose the option that shows the logical flow of the middle sentences (A, B, C, D).

Fixed First Sentence: Many educators argue that reading physical books is superior to reading on digital devices.
(A) They contend that this "deep reading" fosters better comprehension and retention.
(B) This finding is explained by the fact that screens are often associated with multitasking and quick browsing, which hinder deep engagement.
(C) Studies support this view, showing that readers using e-readers tend to have lower recall of narrative sequence.
(D) A key reason is that paper books offer fewer distractions, allowing for greater focus.
Fixed Last Sentence: Therefore, for sustained learning, the traditional medium might still hold an advantage.

Ans
✔ 1. DACB
✘ 2. ADCB
✘ 3. DABC
✘ 4. CBDA

Question ID : **4410091626780**
Option 1 ID : **4410096425476**
Option 2 ID : **4410096425479**
Option 3 ID : **4410096425477**
Option 4 ID : **4410096425478**

Q.19 Select a specific word from the options below to replace the underlined group of words in the following sentence.

The soldier showed great courage and ability in the face of danger during the rescue mission.

Ans
✘ 1. skill
✔ 2. heroism
✘ 3. audacity
✘ 4. fortitude

Question ID : **4410091626982**
Option 1 ID : **4410096426240**
Option 2 ID : **4410096426239**
Option 3 ID : **4410096426241**
Option 4 ID : **4410096426238**

Quick Sarkari

Q.20 Choose the option which best replaces the underlined text.

The teacher gave a long speech as a/an formal expression of praise for the retiring principal.

Ans
✗ 1. preamble
✓ 2. eulogy
✗ 3. accusation
✗ 4. monologue

Question ID : **4410091506719**
Option 1 ID : **4410095951222**
Option 2 ID : **4410095951224**
Option 3 ID : **4410095951223**
Option 4 ID : **4410095951225**

Section : **English Language and Comprehension1**

Q.1 Select the most appropriate option that rectifies the underlined incorrectly spelt word in the given sentence.

The aluring aroma of the blooming jasmine filled the night air, making her feel light-headed with delight.

Ans
✗ 1. alluoring
✗ 2. alloring
✗ 3. allyoring
✓ 4. alluring

Question ID : **441009198997**
Option 1 ID : **441009783292**
Option 2 ID : **441009783291**
Option 3 ID : **441009783290**
Option 4 ID : **441009783293**

Q.2 Choose the option that correctly replaces the underlined misspelt word in the paragraph below.

The report stresses the need for transprency in governmental operations so that citizens can hold public institutions accountable.

Ans
✗ 1. transperancy
✗ 2. transparancy
✗ 3. transperency
✓ 4. transparency

Question ID : **4410091651836**
Option 1 ID : **4410096523122**
Option 2 ID : **4410096523123**
Option 3 ID : **4410096523124**
Option 4 ID : **4410096523125**

QuickSarkari.com | WhatsApp Channel | Telegram: t.me/quick_sarkari

Q.3 **Select the most appropriate passive voice of the sentence given below.**

Geeta opened the purple box.

Ans
1. The purple box was being opened by Gita.
2. The purple box was opened by Gita.
3. The purple box is opened by Gita.
4. The purple box had been opened by Gita.

Question ID : **441009478670**
Option 1 ID : **4410091870030**
Option 2 ID : **4410091870031**
Option 3 ID : **4410091870029**
Option 4 ID : **4410091870032**

Q.4 **Select the INCORRECTLY spelt word.**

Ans
1. Perpetuate
2. Exhilerate
3. Accumulate
4. Inoculate

Question ID : **44100935022**
Option 1 ID : **441009139449**
Option 2 ID : **441009139447**
Option 3 ID : **441009139448**
Option 4 ID : **441009139446**

Q.5 **Choose the correct indirect speech for the following sentence:**

They said, "We are cooking pasta."

Ans
1. They said that they cook pasta.
2. They said that they were cooking pasta.
3. They said that pasta was being cooked.
4. They said that they would cook pasta.

Question ID : **4410091509410**
Option 1 ID : **4410095962303**
Option 2 ID : **4410095962301**
Option 3 ID : **4410095962300**
Option 4 ID : **4410095962302**

QuickSarkari.com | WhatsApp Channel | Telegram: t.me/quick_sarkari

Q.6 **One of the four words in bold in the given sentence is incorrectly spelt. Select the INCORRECTLY spelt word.**

The museum's new exhibition features a breathtaking collection of renaissance paintings, attracting art enthousiasts from around the world.

Ans
✗ 1. exhibition
✗ 2. breathtaking
✓ 3. enthousiasts
✗ 4. renaissance

Question ID : **4410098807**
Option 1 ID : **44100934992**
Option 2 ID : **44100934993**
Option 3 ID : **44100934995**
Option 4 ID : **44100934994**

Q.7 **Select the most appropriate passive voice for the sentence given below.**

The mason builds the house using brick and cement.

Ans
✗ 1. The house was built by the mason using brick and cement.
✓ 2. The house is built by the mason using brick and cement.
✗ 3. The house has been built by the mason using brick and cement.
✗ 4. The house is been built by the mason using brick and cement.

Question ID : **441009478676**
Option 1 ID : **4410091870054**
Option 2 ID : **4410091870053**
Option 3 ID : **4410091870056**
Option 4 ID : **4410091870055**

Q.8 **From the options given below, choose the sentence which is correctly written in passive voice.**

Ans
✗ 1. The documents are being review by the committee throughout the evening.
✗ 2. The documents were been reviewed by the committee throughout the evening.
✗ 3. The documents were being review by the committee throughout the evening.
✓ 4. The documents were being reviewed by the committee throughout the evening.

Question ID : **4410091506892**
Option 1 ID : **4410095951940**
Option 2 ID : **4410095951939**
Option 3 ID : **4410095951941**
Option 4 ID : **4410095951938**

QuickSarkari.com | WhatsApp Channel | Telegram: t.me/quick_sarkari

Q.9 **Select the misspelt word from the sentence given below.**

The vivid painting was remarkable for its colourful depiction and creative use of imagary.

Ans
- ✗ 1. depiction
- ✗ 2. vivid
- ✓ 3. imagary
- ✗ 4. creative

Question ID : **441009410804**
Option 1 ID : **4410091608607**
Option 2 ID : **4410091608608**
Option 3 ID : **4410091608606**
Option 4 ID : **4410091608609**

Q.10 **Select the option that expresses the given sentence in passive voice.**

The manager will review the report.

Ans
- ✗ 1. The report has been reviewed by the manager.
- ✗ 2. The report had been reviewed by the manager.
- ✗ 3. The report will have been reviewed by the manager.
- ✓ 4. The report will be reviewed by the manager.

Question ID : **441009481703**
Option 1 ID : **4410091882164**
Option 2 ID : **4410091882162**
Option 3 ID : **4410091882161**
Option 4 ID : **4410091882163**

QuickSarkari.com | WhatsApp Channel | Telegram: t.me/quick_sarkari

Comprehension:

Read the passage carefully and answer the questions that follow.

A bird flying south for the winter is not simply wandering; it is following a map written in its genes and the sky. This incredible journey, known as migration, is governed by a set of internal and external signals. The primary driver is the change in day length, which triggers hormonal changes in the birds, urging them to prepare for the long flight. They enter a state of hyperphagia, consuming vast amounts of food to store fat, their fuel for the journey. To navigate, birds use a sophisticated toolkit: the sun by day, the stars by night, and even the Earth's magnetic field, which they may sense through specialized proteins in their eyes. While the sight of a flock in perfect V-formation is majestic, it is also practical, as it reduces wind resistance and conserves energy for each bird except the leader. Migration is a testament not to random travel, but to precise, ancient biological programming.

SubQuestion No : 11

Q.11 According to the passage, which is NOT stated as a method birds use for navigation?

Ans

✔ 1. Following the scent trails of other birds

✘ 2. Using the position of the sun

✘ 3. Reading the stars at night

✘ 4. Sensing the Earth's magnetic field

Question ID : **4410091627717**
Option 1 ID : **4410096429070**
Option 2 ID : **4410096429071**
Option 3 ID : **4410096429073**
Option 4 ID : **4410096429072**

Comprehension:

Read the passage carefully and answer the questions that follow.

A bird flying south for the winter is not simply wandering; it is following a map written in its genes and the sky. This incredible journey, known as migration, is governed by a set of internal and external signals. The primary driver is the change in day length, which triggers hormonal changes in the birds, urging them to prepare for the long flight. They enter a state of hyperphagia, consuming vast amounts of food to store fat, their fuel for the journey. To navigate, birds use a sophisticated toolkit: the sun by day, the stars by night, and even the Earth's magnetic field, which they may sense through specialized proteins in their eyes. While the sight of a flock in perfect V-formation is majestic, it is also practical, as it reduces wind resistance and conserves energy for each bird except the leader. Migration is a testament not to random travel, but to precise, ancient biological programming.

SubQuestion No : 12

Q.12 Based on the passage, what can be inferred about the V-formation?

Ans

✘ 1. It is a learned behavior, not an instinctive one.

✘ 2. It is primarily for social bonding and communication.

✘ 3. It allows the lead bird to rest more than the others.

✔ 4. It provides an aerodynamic advantage that saves energy.

Question ID : **4410091627718**
Option 1 ID : **4410096429075**
Option 2 ID : **4410096429074**
Option 3 ID : **4410096429077**
Option 4 ID : **4410096429076**

Comprehension:

Read the passage carefully and answer the questions that follow.

A bird flying south for the winter is not simply wandering; it is following a map written in its genes and the sky. This incredible journey, known as migration, is governed by a set of internal and external signals. The primary driver is the change in day length, which triggers hormonal changes in the birds, urging them to prepare for the long flight. They enter a state of hyperphagia, consuming vast amounts of food to store fat, their fuel for the journey. To navigate, birds use a sophisticated toolkit: the sun by day, the stars by night, and even the Earth's magnetic field, which they may sense through specialized proteins in their eyes. While the sight of a flock in perfect V-formation is majestic, it is also practical, as it reduces wind resistance and conserves energy for each bird except the leader. Migration is a testament not to random travel, but to precise, ancient biological programming.

SubQuestion No : 13

Q.13 The concept discussed in the passage is most relevant to which real-world situation?

Ans

✗ 1. A company restructuring its teams to improve workflow efficiency

✓ 2. An athlete carb-loading before a marathon and using pacemakers

✗ 3. Animals hibernating to survive the winter

✗ 4. Planning a road trip using a map and GPS

Question ID : **4410091627719**
Option 1 ID : **4410096429079**
Option 2 ID : **4410096429080**
Option 3 ID : **4410096429081**
Option 4 ID : **4410096429078**

Comprehension:

Read the passage carefully and answer the questions that follow.

A bird flying south for the winter is not simply wandering; it is following a map written in its genes and the sky. This incredible journey, known as migration, is governed by a set of internal and external signals. The primary driver is the change in day length, which triggers hormonal changes in the birds, urging them to prepare for the long flight. They enter a state of hyperphagia, consuming vast amounts of food to store fat, their fuel for the journey. To navigate, birds use a sophisticated toolkit: the sun by day, the stars by night, and even the Earth's magnetic field, which they may sense through specialized proteins in their eyes. While the sight of a flock in perfect V-formation is majestic, it is also practical, as it reduces wind resistance and conserves energy for each bird except the leader. Migration is a testament not to random travel, but to precise, ancient biological programming.

SubQuestion No : 14

Q.14 What is the central theme of the passage?

Ans

✗ 1. Scientists do not fully understand how birds navigate.

✓ 2. Bird migration is a complex, instinct-driven process guided by environmental cues.

✗ 3. Birds are the most intelligent navigators in the animal kingdom.

✗ 4. Migration is a difficult and dangerous process for all birds.

Question ID : **4410091627716**
Option 1 ID : **4410096429069**
Option 2 ID : **4410096429067**
Option 3 ID : **4410096429066**
Option 4 ID : **4410096429068**

Comprehension:

Read the passage carefully and answer the questions that follow.

A bird flying south for the winter is not simply wandering; it is following a map written in its genes and the sky. This incredible journey, known as migration, is governed by a set of internal and external signals. The primary driver is the change in day length, which triggers hormonal changes in the birds, urging them to prepare for the long flight. They enter a state of hyperphagia, consuming vast amounts of food to store fat, their fuel for the journey. To navigate, birds use a sophisticated toolkit: the sun by day, the stars by night, and even the Earth's magnetic field, which they may sense through specialized proteins in their eyes. While the sight of a flock in perfect V-formation is majestic, it is also practical, as it reduces wind resistance and conserves energy for each bird except the leader. Migration is a testament not to random travel, but to precise, ancient biological programming.

SubQuestion No : 15

Q.15 Which of the following is the most suitable title for the passage?

Ans

✗ 1. The Dangers of Long-Distance Travel

✓ 2. The Science and Instinct Behind Bird Migration

✗ 3. A History of Animal Navigation

✗ 4. How Birds Find Food in Winter

Question ID : **4410091627715**
Option 1 ID : **4410096429062**
Option 2 ID : **4410096429064**
Option 3 ID : **4410096429065**
Option 4 ID : **4410096429063**

Comprehension:

Read the passage carefully and answer the questions that follow.

For millennia, humanity has recorded its collective knowledge, not just in books, but in a living medium: the world's languages. These languages form an immense, intangible library, with each one representing a unique catalog of human experience, history, and thought. When a language disappears, it is not merely a set of words that vanishes. An entire way of seeing the world, a distinct repository of cultural knowledge about local ecosystems, medicine, and philosophy, is lost forever. Linguists estimate that of the roughly 7,000 languages spoken today, nearly half are endangered and may cease to be used by the end of this century. This erosion is often driven by globalization, cultural assimilation, and economic pressures that favor dominant languages. Preserving linguistic diversity is not about nostalgia; it is about safeguarding the intellectual heritage of humankind and the different cognitive tools we have developed to understand our existence.

SubQuestion No : 16

Q.16 Based on the passage, what can be inferred about the main cause of language loss?

Ans

✗ 1. Speakers consciously choose to abandon their native tongues.

✗ 2. Natural disasters are the primary reason languages die.

✗ 3. War and conflict are the biggest threats to linguistic diversity.

✓ 4. It is often a side effect of broader social and economic changes.

Question ID : **4410091627798**
Option 1 ID : **4410096429387**
Option 2 ID : **4410096429386**
Option 3 ID : **4410096429389**
Option 4 ID : **4410096429388**

Comprehension:

Read the passage carefully and answer the questions that follow.

For millennia, humanity has recorded its collective knowledge, not just in books, but in a living medium: the world's languages. These languages form an immense, intangible library, with each one representing a unique catalog of human experience, history, and thought. When a language disappears, it is not merely a set of words that vanishes. An entire way of seeing the world, a distinct repository of cultural knowledge about local ecosystems, medicine, and philosophy, is lost forever. Linguists estimate that of the roughly 7,000 languages spoken today, nearly half are endangered and may cease to be used by the end of this century. This erosion is often driven by globalization, cultural assimilation, and economic pressures that favor dominant languages. Preserving linguistic diversity is not about nostalgia; it is about safeguarding the intellectual heritage of humankind and the different cognitive tools we have developed to understand our existence.

SubQuestion No : 17

Q.17 What is the antonym of the word 'intangible' as used in the passage?

Ans

✗ 1. Valuable

✗ 2. Complicated

✗ 3. Invisible

✓ 4. Physical

Question ID : **4410091627800**
Option 1 ID : **4410096429397**
Option 2 ID : **4410096429396**
Option 3 ID : **4410096429395**
Option 4 ID : **4410096429394**

Comprehension:

Read the passage carefully and answer the questions that follow.

For millennia, humanity has recorded its collective knowledge, not just in books, but in a living medium: the world's languages. These languages form an immense, intangible library, with each one representing a unique catalog of human experience, history, and thought. When a language disappears, it is not merely a set of words that vanishes. An entire way of seeing the world, a distinct repository of cultural knowledge about local ecosystems, medicine, and philosophy, is lost forever. Linguists estimate that of the roughly 7,000 languages spoken today, nearly half are endangered and may cease to be used by the end of this century. This erosion is often driven by globalization, cultural assimilation, and economic pressures that favor dominant languages. Preserving linguistic diversity is not about nostalgia; it is about safeguarding the intellectual heritage of humankind and the different cognitive tools we have developed to understand our existence.

SubQuestion No : 18

Q.18 According to the passage, which is stated as a fact about language endangerment?

Ans

✗ 1. Only 100 languages are spoken in the world today.

✗ 2. All languages will eventually merge into one.

✓ 3. Half of the world's languages may disappear by 2100.

✗ 4. Language preservation is primarily an economic issue.

Question ID : **4410091627797**
Option 1 ID : **4410096429384**
Option 2 ID : **4410096429382**
Option 3 ID : **4410096429383**
Option 4 ID : **4410096429385**

QuickSarkari.com | WhatsApp Channel | Telegram: t.me/quick_sarkari

Comprehension:

Read the passage carefully and answer the questions that follow.

For millennia, humanity has recorded its collective knowledge, not just in books, but in a living medium: the world's languages. These languages form an immense, intangible library, with each one representing a unique catalog of human experience, history, and thought. When a language disappears, it is not merely a set of words that vanishes. An entire way of seeing the world, a distinct repository of cultural knowledge about local ecosystems, medicine, and philosophy, is lost forever. Linguists estimate that of the roughly 7,000 languages spoken today, nearly half are endangered and may cease to be used by the end of this century. This erosion is often driven by globalization, cultural assimilation, and economic pressures that favor dominant languages. Preserving linguistic diversity is not about nostalgia; it is about safeguarding the intellectual heritage of humankind and the different cognitive tools we have developed to understand our existence.

SubQuestion No : 19

Q.19 What is the central theme of the passage?

Ans

✗ 1. English is becoming the most important world language.

✗ 2. Globalization has made the world's languages more similar.

✗ 3. Linguists are working hard to document rare languages.

✓ 4. Every language is a unique vessel of human knowledge whose loss diminishes us all.

Question ID : **4410091627796**
Option 1 ID : **4410096429380**
Option 2 ID : **4410096429378**
Option 3 ID : **4410096429381**
Option 4 ID : **4410096429379**

Comprehension:

Read the passage carefully and answer the questions that follow.

For millennia, humanity has recorded its collective knowledge, not just in books, but in a living medium: the world's languages. These languages form an immense, intangible library, with each one representing a unique catalog of human experience, history, and thought. When a language disappears, it is not merely a set of words that vanishes. An entire way of seeing the world, a distinct repository of cultural knowledge about local ecosystems, medicine, and philosophy, is lost forever. Linguists estimate that of the roughly 7,000 languages spoken today, nearly half are endangered and may cease to be used by the end of this century. This erosion is often driven by globalization, cultural assimilation, and economic pressures that favor dominant languages. Preserving linguistic diversity is not about nostalgia; it is about safeguarding the intellectual heritage of humankind and the different cognitive tools we have developed to understand our existence.

SubQuestion No : 20

Q.20 Identify the tone of the passage.

Ans

✗ 1. Detached and uninterested

✗ 2. Celebratory and joyous

✗ 3. Angry and accusatory

✓ 4. Concerned and persuasive

Question ID : **4410091627799**
Option 1 ID : **4410096429393**
Option 2 ID : **4410096429390**
Option 3 ID : **4410096429392**
Option 4 ID : **4410096429391**

Section : **Hindi Language and Comprehension**

Q.1 दिए गए वाक्यांश के लिए निम्न में से सार्थक शब्द का चुनाव कीजिए।
'जिसका कोई इलाज नहीं होता है'

Ans
✗ 1. बदइलाज
✗ 2. नाइलाज
✓ 3. लाइलाज
✗ 4. बेइलाज

Question ID : **441009476916**
Option 1 ID : **4410091863079**
Option 2 ID : **4410091863080**
Option 3 ID : **4410091863078**
Option 4 ID : **4410091863077**

Q.2 सर्वोचित क्रिया-विशेषण शब्द से वाक्य का रिक्त स्थान पूर्ण करें--
बारिश हो रही है ..... आज खेल न हो पाए।

Ans
✗ 1. निःसंदेह
✗ 2. अवश्य
✗ 3. अलबत्ता
✓ 4. शायद

Question ID : **441009466325**
Option 1 ID : **4410091824053**
Option 2 ID : **4410091824056**
Option 3 ID : **4410091824054**
Option 4 ID : **4410091824055**

Q.3 'चालाकी में सियार भी शेर' लोकोक्ति का सही अर्थ है –

Ans
✓ 1. चालाकी बुरी बात है
✗ 2. चालाक व्यक्ति बड़ा काम कर सकता है
✗ 3. शेर से मुकाबला नहीं
✗ 4. सियार बहुत डरपोक होता है

Question ID : **4410091434936**
Option 1 ID : **4410095668288**
Option 2 ID : **4410095668286**
Option 3 ID : **4410095668287**
Option 4 ID : **4410095668285**

QuickSarkari.com | WhatsApp Channel | Telegram: t.me/quick_sarkari

Q.4 नीचे दिए वाक्य में रिक्त-स्थान की पूर्ति के लिए दिए गए विकल्पों में से गुणवाचक विशेषण चुनें-
_____साड़ियाँ बिक रही थीं।

Ans
✗ 1. पूरी
✗ 2. वैसी
✗ 3. कुछ
✓ 4. नीली

Question ID : **441009402002**
Option 1 ID : **4410091573409**
Option 2 ID : **4410091573406**
Option 3 ID : **4410091573408**
Option 4 ID : **4410091573407**

Q.5 'वह वस्तु जिसका उत्पादन हुआ हो' वाक्यांश के लिए एक शब्द होगा--

Ans
✗ 1. उदभूत
✗ 2. निर्मित
✓ 3. उत्पाद
✗ 4. उपज

Question ID : **441009619109**
Option 1 ID : **4410092430606**
Option 2 ID : **4410092430603**
Option 3 ID : **4410092430605**
Option 4 ID : **4410092430604**

Q.6 'जिस पर अभियोग लगाया गया हो ' वाक्यांश के लिए सार्थक शब्द क्या होगा ?

Ans
✗ 1. अनुगामी
✗ 2. अवीरा
✓ 3. अभियुक्त
✗ 4. अप्रत्याशित

Question ID : **441009477010**
Option 1 ID : **4410091863456**
Option 2 ID : **4410091863455**
Option 3 ID : **4410091863453**
Option 4 ID : **4410091863454**

Q.7 अच्छा-बुरा समझने की शक्ति का अभाव - इस वाक्यांश के लिए एक शब्द क्या होगा?

Ans
✓ 1. अविवेक
✗ 2. पारदर्शी
✗ 3. चालक
✗ 4. गतिशील

Question ID : **441009653126**
Option 1 ID : **4410092566781**
Option 2 ID : **4410092566782**
Option 3 ID : **4410092566780**
Option 4 ID : **4410092566779**

QuickSarkari.com | WhatsApp Channel | Telegram: t.me/quick_sarkari

Q.8 'उल्लू के से दीदे' मुहावरे का सही अर्थ होगा -

Ans
✗ 1. फ़ौरन लौट जाना
✓ 2. डरावनी और बड़ी-बड़ी आँखें
✗ 3. चालाकी की बात करना
✗ 4. मूर्ख बनाना

Question ID : **441009397646**
Option 1 ID : **4410091556029**
Option 2 ID : **4410091556026**
Option 3 ID : **4410091556027**
Option 4 ID : **4410091556028**

Q.9 वह वस्तु जिसमें बाण रखे जाएँ – वाक्यांश के लिए, निम्नलिखित विकल्पों में से किस एक शब्द का प्रयोग सार्थक है? चयन करें-

Ans
✗ 1. ढरका
✓ 2. तूणीर
✗ 3. दरीचा
✗ 4. त्रिकुट

Question ID : **441009681273**
Option 1 ID : **4410092679077**
Option 2 ID : **4410092679075**
Option 3 ID : **4410092679076**
Option 4 ID : **4410092679074**

Q.10 'जाए लाख रहे साख' लोकोक्ति का सही अर्थ है –

Ans
✗ 1. बिना यत्न किए कुछ भी नहीं मिलता
✗ 2. पूर्ण स्वतंत्र होना
✓ 3. धन भले ही लगे, इज्जत बचनी चाहिए
✗ 4. कोई काम नियम-कायदे से न करना

Question ID : **441009462460**
Option 1 ID : **4410091808248**
Option 2 ID : **4410091808251**
Option 3 ID : **4410091808250**
Option 4 ID : **4410091808249**

Q.11 नीचे दिए वाक्य में रिक्त-स्थान की पूर्ति के लिए दिए गए विकल्पों में से उचित क्रियापद चुनें- तुमने क्या _____?

Ans
✗ 1. खाता
✗ 2. खाई
✓ 3. खाया
✗ 4. खाना

Question ID : **441009401978**
Option 1 ID : **4410091573307**
Option 2 ID : **4410091573309**
Option 3 ID : **4410091573308**
Option 4 ID : **4410091573306**

Q.12 सही वाक्य-क्रम वाले वाक्य का चयन कीजिए-

Ans
✔ 1. एक छोटे से / रेलवे स्टेशन से / कुछ दूर / एक बहुत / बड़ा पीपल / का पेड़ था
✘ 2. एक बहुत / एक छोटे से / रेलवे स्टेशन से / कुछ दूर / बड़ा पीपल / का पेड़ था
✘ 3. रेलवे स्टेशन से / कुछ दूर / एक बहुत / बड़ा पीपल / एक छोटे से / का पेड़ था
✘ 4. रेलवे स्टेशन से / एक छोटे से / कुछ दूर / एक बहुत / बड़ा पीपल / का पेड़ था

Question ID : **4410091493611**
Option 1 ID : **4410095900066**
Option 2 ID : **4410095900065**
Option 3 ID : **4410095900067**
Option 4 ID : **4410095900064**

Q.13 वाक्य के रिक्त स्थान को अपादान कारक से पूर्ण करें।

वह अपने घर ..... निकला ।

Ans
✘ 1. को
✔ 2. से
✘ 3. पर
✘ 4. में

Question ID : **441009354017**
Option 1 ID : **4410091382308**
Option 2 ID : **4410091382309**
Option 3 ID : **4410091382311**
Option 4 ID : **4410091382310**

Q.14 निम्न में से कौन-सी लोकोक्ति अपने अर्थ से असुमेलित है?

Ans
✘ 1. अंधों में काना राजा – अयोग्य व्यक्तियों में कम योग्य व्यक्ति भी श्रेष्ठ बन जाता है
✔ 2. ऊँची दुकान फीका पकवान – बड़ी दुकानों पर अच्छा खाना नहीं मिलता
✘ 3. अधजल गगरी छलकत जाए – ओछा व्यक्ति बहुत बढ़ा-चढ़ा कर अपनी प्रशंसा करता है
✘ 4. अकेला चना भाड़ नहीं फोड़ सकता – कोई भी बड़ा काम अकेले व्यक्ति से नहीं हो सकता

Question ID : **441009401732**
Option 1 ID : **4410091572344**
Option 2 ID : **4410091572347**
Option 3 ID : **4410091572345**
Option 4 ID : **4410091572346**

QuickSarkari.com | WhatsApp Channel | Telegram: t.me/quick_sarkari

Q.15 रिक्त स्थान के लिए उपयुक्त विशेषण का चयन दिए गए विकल्पों में से करें।
नगर के मध्य में एक.....उपवन स्थित था।

Ans
✗ 1. अधिक
✗ 2. अगला
✗ 3. दुबला
✓ 4. सुंदर

Question ID : **4410091481135**
Option 1 ID : **4410095851678**
Option 2 ID : **4410095851680**
Option 3 ID : **4410095851681**
Option 4 ID : **4410095851679**

Q.16 वाक्य के रिक्त स्थान को कर्ता कारक से पूर्ण करें।

दुकानदार ..... पैसा लिया।

Ans
✗ 1. से
✓ 2. ने
✗ 3. का
✗ 4. को

Question ID : **441009354021**
Option 1 ID : **4410091382325**
Option 2 ID : **4410091382324**
Option 3 ID : **4410091382327**
Option 4 ID : **4410091382326**

Q.17 'धुन का पक्का' मुहावरे का अर्थ निम्न में से है--

Ans
✓ 1. निश्चय पर स्थिर रहने वाला
✗ 2. झूठ बोलनेवाला
✗ 3. दूसरों को परेशान करने वाला
✗ 4. पूर्णत: मूर्ख होना

Question ID : **441009401669**
Option 1 ID : **4410091572092**
Option 2 ID : **4410091572095**
Option 3 ID : **4410091572094**
Option 4 ID : **4410091572093**

QuickSarkari.com | WhatsApp Channel | Telegram: t.me/quick_sarkari

Q.18 निम्नलिखित वाक्यांश एक वाक्य का अभिन्न अंग हैं ,जो यहाँ क्रम में नहीं दिए गए हैं । इनको क्रम में लगाइए –
1.भुनी हुई मछली का एक टुकड़ा उठाया
2.बरामदे पर गया और
3.जोर से कौए की ओर देखते हुए कहा ले जा! ले ले!
4.किशन लाल ने मछली की थाली से

Ans
✗ 1. 1,4,3,2
✓ 2. 4,1,2,3
✗ 3. 4,3,2,1
✗ 4. 1,2,4,3

Question ID : **4410091509265**
Option 1 ID : **4410095961724**
Option 2 ID : **4410095961725**
Option 3 ID : **4410095961726**
Option 4 ID : **4410095961727**

Q.19 'जान हथेली पर रखना' मुहावरे का सही अर्थ है-

Ans
✗ 1. लोभ में फँसना
✓ 2. प्राणों की परवाह न करना
✗ 3. निरर्थक कार्य करना
✗ 4. असंभव कार्य करना

Question ID : **4410091529731**
Option 1 ID : **4410096042015**
Option 2 ID : **4410096042016**
Option 3 ID : **4410096042018**
Option 4 ID : **4410096042017**

Q.20 निम्नलिखित वाक्य के रिक्त स्थान में क्रिया शब्द का प्रयोग करें -
'गाय और बैल चारा रहे हैं।'

Ans
✗ 1. खाकर
✗ 2. खाता
✗ 3. खाना
✓ 4. खा

Question ID : **4410091511136**
Option 1 ID : **4410095968604**
Option 2 ID : **4410095968605**
Option 3 ID : **4410095968603**
Option 4 ID : **4410095968602**

Section : **Hindi Language and Comprehension1**

QuickSarkari.com | WhatsApp Channel | Telegram: t.me/quick_sarkari

Q.1 दिए गए वाक्य के किस भाग में त्रुटि है?

इस समय स्कूल में रोसनी नहीं है।

Ans
✔ 1. रोसनी
✘ 2. इस समय
✘ 3. नहीं है ।
✘ 4. स्कूल में

Question ID : **441009298064**
Option 1 ID : **4410091159353**
Option 2 ID : **4410091159351**
Option 3 ID : **4410091159354**
Option 4 ID : **4410091159352**

Q.2 निम्नलिखित वाक्य में रेखांकित शब्द का पर्यायवाची क्या होगा?
उज्जैन में चंद्रमौली का मंदिर स्थित है।

Ans
✘ 1. सोमगिरि
✘ 2. प्रभाकर
✘ 3. दिवाकर
✔ 4. कैलाशपति

Question ID : **4410091568671**
Option 1 ID : **4410096195973**
Option 2 ID : **4410096195970**
Option 3 ID : **4410096195971**
Option 4 ID : **4410096195972**

Q.3 दिए गए वाक्य के रेखांकित शब्द का पर्यायवाची पहचानें-
आज का कार्य समय पर पूरा करना सभी के लिए आवश्यक है।

Ans
✔ 1. काम
✘ 2. संगीत
✘ 3. मौसम
✘ 4. पर्वत

Question ID : **4410091515439**
Option 1 ID : **4410095985157**
Option 2 ID : **4410095985160**
Option 3 ID : **4410095985158**
Option 4 ID : **4410095985159**

Quick Sarkari

Q.4 निम्नलिखित में से कौन सा एक वाक्य वर्तनी की दृष्टि से अशुद्ध है?

Ans
✔ 1. किताब का सारांस अपने शब्दों में लिखिए ।
✘ 2. साक्ष्य सहित विवरण प्रस्तुत किया जाए ।
✘ 3. इस कहानी संग्रह के लेखक का नाम क्या है ?
✘ 4. क्या मुकेश पागल हो गया है ?

Question ID : **441009236886**
Option 1 ID : **441009925958**
Option 2 ID : **441009925956**
Option 3 ID : **441009925955**
Option 4 ID : **441009925957**

Q.5 निम्नलिखित वाक्य में से अशुद्ध वर्तनी वाले अंश को पहचानें -
कठिन परिश्रम से प्रापत सफलता जीवन को नई दिशा दे देती है।

Ans
✔ 1. प्रापत सफलता
✘ 2. जीवन को नई
✘ 3. कठिन परिश्रम से
✘ 4. दिशा दे देती है

Question ID : **4410091514127**
Option 1 ID : **4410095980435**
Option 2 ID : **4410095980436**
Option 3 ID : **4410095980434**
Option 4 ID : **4410095980437**

Q.6 दिए गए वाक्य के रेखांकित शब्द का विलोम पहचानें-
वह <u>सजग</u> होकर अपने कार्य करता है।

Ans
✘ 1. प्यारा
✔ 2. असावधान
✘ 3. गोल
✘ 4. कठोर

Question ID : **4410091515556**
Option 1 ID : **4410095985628**
Option 2 ID : **4410095985625**
Option 3 ID : **4410095985627**
Option 4 ID : **4410095985626**

Quick Sarkari

Q.7 दिए गए वाक्य के रेखांकित शब्द का पर्यायवाची पहचानें-
सफलता पाने के लिए निरंतर <u>प्रयास</u> करना अत्यंत आवश्यक होता है।

Ans
✗ 1. कागज
✗ 2. अस्पताल
✓ 3. कोशिश
✗ 4. गेंद

Question ID : **4410091515460**
Option 1 ID : **4410095985242**
Option 2 ID : **4410095985243**
Option 3 ID : **4410095985241**
Option 4 ID : **4410095985244**

Q.8 निम्नलिखित वाक्य में रेखांकित शब्द का पर्यायवाची क्या होगा?
भारतीय ज्ञान परंपरा की सबसे प्रमुख विशेषता <u>मीमांसा</u> है।

Ans
✗ 1. यशोगान
✓ 2. विवेचन
✗ 3. जानकार
✗ 4. संभाषण

Question ID : **4410091576421**
Option 1 ID : **4410096226458**
Option 2 ID : **4410096226459**
Option 3 ID : **4410096226457**
Option 4 ID : **4410096226456**

Q.9 निम्नलिखित वाक्य में रेखांकित शब्द का पर्यायवाची क्या होगा?
भारत जिस पर्वतशृंखला से सुरक्षित है वह <u>हिमालय</u> है।

Ans
✗ 1. पवनपुत्र
✗ 2. सुदर्शना
✗ 3. जलधि
✓ 4. शैलेन्द्र

Question ID : **4410091568666**
Option 1 ID : **4410096195953**
Option 2 ID : **4410096195950**
Option 3 ID : **4410096195951**
Option 4 ID : **4410096195952**

QuickSarkari.com | WhatsApp Channel | Telegram: t.me/quick_sarkari

Q.10 दिए गए वाक्य के किस भाग में त्रुटि है?
जो धन का लालची है, वह साधू नहीं है।

Ans
✗ 1. जो धन का
✗ 2. नहीं है।
✗ 3. लालची है,
✓ 4. वह साधू

Question ID : **4410091649062**
Option 1 ID : **4410096512464**
Option 2 ID : **4410096512467**
Option 3 ID : **4410096512465**
Option 4 ID : **4410096512466**

Comprehension:

निम्नलिखित गद्यांश के आधार पर प्रश्नों के उत्तर दीजिए।
अमृतकाल के युग में, नए भारत की रक्षा शक्ति का ताना-बाना इनोवेशन के धागों से जटिल रूप से बुना गया है। पिछले 9.5 वर्षों में देश का रक्षा बजट 2014 में 2.03 लाख करोड़ रुपए से बढ़कर 2023 में 5.94 लाख करोड़ रुपए हो गया है। यह वित्त वर्ष 2013-14 में 686 करोड़ रुपए था, जो बढ़कर 2022-23 में लगभग 16,000 करोड़ रुपए हो गया है। यह उल्लेखनीय 23 गुना वृद्धि है। ड्राफ्ट डिफेंस प्रोडक्शन ऐंड एक्सपोर्ट प्रमोशन (डी.पी.ई.पी.पी.) 2020 एक प्रकाश-स्तंभ के रूप में खड़ा है, जो 2025 तक निर्यात में 5 बिलियन अमरीकी डॉलर प्राप्त करने के महत्त्वाकांक्षी लक्ष्य हासिल करने में मदद करेगा। इसके साथ ही डी.पी.ई.पी. पी. - एयरोस्पेस और नौसेना उद्योगों सहित देश की रक्षा उत्पादन क्षमताओं को बढ़ाने की दिशा में केंद्रित और संरचित प्रयासों को प्रसारित करता है। उत्तर प्रदेश डिफेंस इंडस्ट्रियल कॉरिडोर ने 2,242+ करोड़ रुपए, जबकि तमिलनाडु रक्षा औद्योगिक कॉरिडोर ने 2023 तक 3,847+ करोड़ रुपए का निवेश किया है। आत्मनिर्भरता को बढ़ाते हुए 2025 तक 5,000 रक्षा घटकों के निर्माण का लक्ष्य, जो वर्तमान में आयातित हैं। वित्त वर्ष 2023-24 में रक्षा पूँजी खरीद बजट का रिकॉर्ड 75 प्रतिशत (लगभग एक लाख करोड़ रुपए) घरेलू उद्योग के लिए निर्धारित किया गया था, जो 2022-23 में 68 प्रतिशत से अधिक था। अप्रैल 2023 तक 369 रक्षा क्षेत्र की कंपनियों को 606 लाइसेंस जारी किए गए, जिससे औद्योगिक विकास को बढ़ावा मिला है।

SubQuestion No : 11

Q.11 डी.पी.ई.पी.पी. क्या है?

Ans
✓ 1. ड्राफ्ट डिफेंस प्रोडक्शन ऐंड एक्सपोर्ट प्रमोशन
✗ 2. ड्राफ्ट डिफेंस प्रोडक्ट ऐंड इम्पोर्ट प्रमोशन
✗ 3. ड्राफ्ट डिफेंस प्रोडक्ट ऐंड एक्सपोर्ट प्रमोटर्र
✗ 4. ड्राफ्ट डिफेंस प्रोडक्ट ऐंड एक्सपोर्ट प्रमोशन

Question ID : **4410091653352**
Option 1 ID : **4410096528755**
Option 2 ID : **4410096528756**
Option 3 ID : **4410096528757**
Option 4 ID : **4410096528754**

Comprehension:

निम्नलिखित गद्यांश के आधार पर प्रश्नों के उत्तर दीजिए।
अमृतकाल के युग में, नए भारत की रक्षा शक्ति का ताना-बाना इनोवेशन के धागों से जटिल रूप से बुना गया है। पिछले 9.5 वर्षों में देश का रक्षा बजट 2014 में 2.03 लाख करोड़ रुपए से बढ़कर 2023 में 5.94 लाख करोड़ रुपए हो गया है। यह वित्त वर्ष 2013-14 में 686 करोड़ रुपए था, जो बढ़कर 2022-23 में लगभग 16,000 करोड़ रुपए हो गया है। यह उल्लेखनीय 23 गुना वृद्धि है। ड्राफ्ट डिफेंस प्रोडक्शन ऐंड एक्सपोर्ट प्रमोशन (डी.पी.ई.पी.पी.) 2020 एक प्रकाश-स्तंभ के रूप में खड़ा है, जो 2025 तक निर्यात में 5 बिलियन अमरीकी डॉलर प्राप्त करने के महत्त्वाकांक्षी लक्ष्य हासिल करने में मदद करेगा। इसके साथ ही डी.पी.ई.पी. पी. - एयरोस्पेस और नौसेना उद्योगों सहित देश की रक्षा उत्पादन क्षमताओं को बढ़ाने की दिशा में केंद्रित और संरचित प्रयासों को प्रसारित करता है। उत्तर प्रदेश डिफेंस इंडस्ट्रियल कॉरिडोर ने 2,242+ करोड़ रुपए, जबकि तमिलनाडु रक्षा औद्योगिक कॉरिडोर ने 2023 तक 3,847+ करोड़ रुपए का निवेश किया है। आत्मनिर्भरता को बढ़ाते हुए 2025 तक 5,000 रक्षा घटकों के निर्माण का लक्ष्य, जो वर्तमान में आयातित हैं। वित्त वर्ष 2023-24 में रक्षा पूँजी खरीद बजट का रिकॉर्ड 75 प्रतिशत (लगभग एक लाख करोड़ रुपए) घरेलू उद्योग के लिए निर्धारित किया गया था, जो 2022-23 में 68 प्रतिशत से अधिक था। अप्रैल 2023 तक 369 रक्षा क्षेत्र की कंपनियों को 606 लाइसेंस जारी किए गए, जिससे औद्योगिक विकास को बढ़ावा मिला है।

SubQuestion No : 12

Q.12 पिछले 9.5 वर्षों में देश के रक्षा बजट में कितने प्रतिशत की वृद्धि हुई है?

Ans
✗ 1. 30 %
✓ 2. 23 %
✗ 3. 35 %
✗ 4. 33 %

Question ID : **4410091653349**
Option 1 ID : **4410096528743**
Option 2 ID : **4410096528742**
Option 3 ID : **4410096528745**
Option 4 ID : **4410096528744**

Comprehension:

निम्नलिखित गद्यांश के आधार पर प्रश्नों के उत्तर दीजिए।
अमृतकाल के युग में, नए भारत की रक्षा शक्ति का ताना-बाना इनोवेशन के धागों से जटिल रूप से बुना गया है। पिछले 9.5 वर्षों में देश का रक्षा बजट 2014 में 2.03 लाख करोड़ रुपए से बढ़कर 2023 में 5.94 लाख करोड़ रुपए हो गया है। यह वित्त वर्ष 2013-14 में 686 करोड़ रुपए था, जो बढ़कर 2022-23 में लगभग 16,000 करोड़ रुपए हो गया है। यह उल्लेखनीय 23 गुना वृद्धि है। ड्राफ्ट डिफेंस प्रोडक्शन ऐंड एक्सपोर्ट प्रमोशन (डी.पी.ई.पी.पी.) 2020 एक प्रकाश-स्तंभ के रूप में खड़ा है, जो 2025 तक निर्यात में 5 बिलियन अमरीकी डॉलर प्राप्त करने के महत्त्वाकांक्षी लक्ष्य हासिल करने में मदद करेगा। इसके साथ ही डी.पी.ई.पी. पी. - एयरोस्पेस और नौसेना उद्योगों सहित देश की रक्षा उत्पादन क्षमताओं को बढ़ाने की दिशा में केंद्रित और संरचित प्रयासों को प्रसारित करता है। उत्तर प्रदेश डिफेंस इंडस्ट्रियल कॉरिडोर ने 2,242+ करोड़ रुपए, जबकि तमिलनाडु रक्षा औद्योगिक कॉरिडोर ने 2023 तक 3,847+ करोड़ रुपए का निवेश किया है। आत्मनिर्भरता को बढ़ाते हुए 2025 तक 5,000 रक्षा घटकों के निर्माण का लक्ष्य, जो वर्तमान में आयातित हैं। वित्त वर्ष 2023-24 में रक्षा पूँजी खरीद बजट का रिकॉर्ड 75 प्रतिशत (लगभग एक लाख करोड़ रुपए) घरेलू उद्योग के लिए निर्धारित किया गया था, जो 2022-23 में 68 प्रतिशत से अधिक था। अप्रैल 2023 तक 369 रक्षा क्षेत्र की कंपनियों को 606 लाइसेंस जारी किए गए, जिससे औद्योगिक विकास को बढ़ावा मिला है।

SubQuestion No : 13

Q.13 अप्रैल 2023 तक 369 रक्षा क्षेत्र की कितनी कंपनियों को लाइसेंस जारी किए गए?

Ans
✓ 1. 606
✗ 2. 626
✗ 3. 600
✗ 4. 608

Question ID : **4410091653351**
Option 1 ID : **4410096528751**
Option 2 ID : **4410096528753**
Option 3 ID : **4410096528752**
Option 4 ID : **4410096528750**

Comprehension:

निम्नलिखित गद्यांश के आधार पर प्रश्नों के उत्तर दीजिए।
अमृतकाल के युग में, नए भारत की रक्षा शक्ति का ताना-बाना इनोवेशन के धागों से जटिल रूप से बुना गया है। पिछले 9.5 वर्षों में देश का रक्षा बजट 2014 में 2.03 लाख करोड़ रुपए से बढ़कर 2023 में 5.94 लाख करोड़ रुपए हो गया है। यह वित्त वर्ष 2013-14 में 686 करोड़ रुपए था, जो बढ़कर 2022-23 में लगभग 16,000 करोड़ रुपए हो गया है। यह उल्लेखनीय 23 गुना वृद्धि है। ड्राफ्ट डिफेंस प्रोडक्शन ऐंड एक्सपोर्ट प्रमोशन (डी.पी.ई.पी.पी.) 2020 एक प्रकाश-स्तंभ के रूप में खड़ा है, जो 2025 तक निर्यात में 5 बिलियन अमरीकी डॉलर प्राप्त करने के महत्त्वाकांक्षी लक्ष्य हासिल करने में मदद करेगा। इसके साथ ही डी.पी.ई.पी. पी. - एयरोस्पेस और नौसेना उद्योगों सहित देश की रक्षा उत्पादन क्षमताओं को बढ़ाने की दिशा में केंद्रित और संरचित प्रयासों को प्रसारित करता है। उत्तर प्रदेश डिफेंस इंडस्ट्रियल कॉरिडोर ने 2,242+ करोड़ रुपए, जबकि तमिलनाडु रक्षा औद्योगिक कॉरिडोर ने 2023 तक 3,847+ करोड़ रुपए का निवेश किया है। आत्मनिर्भरता को बढ़ाते हुए 2025 तक 5,000 रक्षा घटकों के निर्माण का लक्ष्य, जो वर्तमान में आयातित हैं। वित्त वर्ष 2023-24 में रक्षा पूँजी खरीद बजट का रिकॉर्ड 75 प्रतिशत (लगभग एक लाख करोड़ रुपए) घरेलू उद्योग के लिए निर्धारित किया गया था, जो 2022-23 में 68 प्रतिशत से अधिक था। अप्रैल 2023 तक 369 रक्षा क्षेत्र की कंपनियों को 606 लाइसेंस जारी किए गए, जिससे औद्योगिक विकास को बढ़ावा मिला है।

SubQuestion No : 14

Q.14 उपर्युक्त गद्यांश का शीर्षक बताएं।

Ans

✗ 1. रक्षा उत्पादन में स्वनिर्भर शक्ति

✗ 2. रक्षा उत्पादन की प्रादेशिक भूमिका

✓ 3. रक्षा उत्पादन में अवमूल्यन एवं नवाचार

✗ 4. रक्षा उत्पादन का वैश्विक परिप्रेक्ष्य

Question ID : **4410091653348**
Option 1 ID : **4410096528740**
Option 2 ID : **4410096528741**
Option 3 ID : **4410096528738**
Option 4 ID : **4410096528739**

Comprehension:

निम्नलिखित गद्यांश के आधार पर प्रश्नों के उत्तर दीजिए।
अमृतकाल के युग में, नए भारत की रक्षा शक्ति का ताना-बाना इनोवेशन के धागों से जटिल रूप से बुना गया है। पिछले 9.5 वर्षों में देश का रक्षा बजट 2014 में 2.03 लाख करोड़ रुपए से बढ़कर 2023 में 5.94 लाख करोड़ रुपए हो गया है। यह वित्त वर्ष 2013-14 में 686 करोड़ रुपए था, जो बढ़कर 2022-23 में लगभग 16,000 करोड़ रुपए हो गया है। यह उल्लेखनीय 23 गुना वृद्धि है। ड्राफ्ट डिफेंस प्रोडक्शन ऐंड एक्सपोर्ट प्रमोशन (डी.पी.ई.पी.पी.) 2020 एक प्रकाश-स्तंभ के रूप में खड़ा है, जो 2025 तक निर्यात में 5 बिलियन अमरीकी डॉलर प्राप्त करने के महत्त्वाकांक्षी लक्ष्य हासिल करने में मदद करेगा। इसके साथ ही डी.पी.ई.पी. पी. - एयरोस्पेस और नौसेना उद्योगों सहित देश की रक्षा उत्पादन क्षमताओं को बढ़ाने की दिशा में केंद्रित और संरचित प्रयासों को प्रसारित करता है। उत्तर प्रदेश डिफेंस इंडस्ट्रियल कॉरिडोर ने 2,242+ करोड़ रुपए, जबकि तमिलनाडु रक्षा औद्योगिक कॉरिडोर ने 2023 तक 3,847+ करोड़ रुपए का निवेश किया है। आत्मनिर्भरता को बढ़ाते हुए 2025 तक 5,000 रक्षा घटकों के निर्माण का लक्ष्य, जो वर्तमान में आयातित हैं। वित्त वर्ष 2023-24 में रक्षा पूँजी खरीद बजट का रिकॉर्ड 75 प्रतिशत (लगभग एक लाख करोड़ रुपए) घरेलू उद्योग के लिए निर्धारित किया गया था, जो 2022-23 में 68 प्रतिशत से अधिक था। अप्रैल 2023 तक 369 रक्षा क्षेत्र की कंपनियों को 606 लाइसेंस जारी किए गए, जिससे औद्योगिक विकास को बढ़ावा मिला है।

SubQuestion No : 15

Q.15 उत्तर प्रदेश डिफेंस इंडस्ट्रियल कॉरिडोर ने 2023 तक कितना निवेश किया है?

Ans

✗ 1. 2,003+ करोड़ रुपए

✗ 2. 5,940 + करोड़ रुपए

✓ 3. 2,242+ करोड़ रुपए

✗ 4. 3,847+ करोड़ रुपए

Question ID : **4410091653350**
Option 1 ID : **4410096528748**
Option 2 ID : **4410096528749**
Option 3 ID : **4410096528746**
Option 4 ID : **4410096528747**

Comprehension:

निम्नलिखित गद्यांश को ध्यानपूर्वक पढ़ें और पूछे गए प्रश्नों के उत्तर दें।
भारत जैसे निर्धन देश के लिए सहकारिता की आवश्यकता कौन स्वीकार नहीं करेगा? सहकारिता हमारे ग्रामीण क्षेत्रों के आर्थिक विकास में विशेष रूप से सहायक सिद्ध होगी। हमारा देश कृषि-प्रधान है। यहाँ की 75 प्रतिशत से भी अधिक जनता कृषि-कार्य से अपनी जीविका उपार्जन करती है। कृषकों की दशा दयनीय है। उनके पास छोटे-छोटे खेत हैं, पैसा नहीं है, बल्कि वे ऋण-ग्रस्त हैं। उनके खेतों से बहुत कम उपज होती है और वह भी प्रायः लगान एवं ऋण चुकाने में समाप्त हो जाती है। बेचारों के पास खाने भर को अन्न नहीं बच पाता। ऐसी दशा में सहकारिता ही उनकी रक्षा कर सकेगी। यही हमारे भूखे नंगे किसानों की भोजन-वस्त्र की समस्या हल करेगी। यही हमारे किसानों के अस्थि-पंजर शरीर में नवीन रक्त, नवीन आभा, नवीन जीवन का संचार करेगी। इसकी सबसे बड़ी विशेषता यह है कि इसमें निजी संपत्ति पर मनुष्य का अधिकार ज्यों का त्यों बना रहता है और इसके साथ ही बहुत से लोग अपने साधनों और परिश्रम को सामूहिक रूप प्रदान करके अधिक उत्पादन में समर्थ हो सकते हैं।

SubQuestion No : 16

Q.16 गद्यांश किस प्रकार की संरचना में लिखा गया है?

Ans

✗ 1. नाट्यात्मक

✗ 2. काव्यात्मक

✓ 3. विवरणात्मक (व्याख्यात्मक)

✗ 4. संवादात्मक

Question ID : **4410091515724**
Option 1 ID : **4410095986289**
Option 2 ID : **4410095986292**
Option 3 ID : **4410095986290**
Option 4 ID : **4410095986291**

Comprehension:

निम्नलिखित गद्यांश को ध्यानपूर्वक पढ़ें और पूछे गए प्रश्नों के उत्तर दें।
भारत जैसे निर्धन देश के लिए सहकारिता की आवश्यकता कौन स्वीकार नहीं करेगा? सहकारिता हमारे ग्रामीण क्षेत्रों के आर्थिक विकास में विशेष रूप से सहायक सिद्ध होगी। हमारा देश कृषि-प्रधान है। यहाँ की 75 प्रतिशत से भी अधिक जनता कृषि-कार्य से अपनी जीविका उपार्जन करती है। कृषकों की दशा दयनीय है। उनके पास छोटे-छोटे खेत हैं, पैसा नहीं है, बल्कि वे ऋण-ग्रस्त हैं। उनके खेतों से बहुत कम उपज होती है और वह भी प्रायः लगान एवं ऋण चुकाने में समाप्त हो जाती है। बेचारों के पास खाने भर को अन्न नहीं बच पाता। ऐसी दशा में सहकारिता ही उनकी रक्षा कर सकेगी। यही हमारे भूखे नंगे किसानों की भोजन-वस्त्र की समस्या हल करेगी। यही हमारे किसानों के अस्थि-पंजर शरीर में नवीन रक्त, नवीन आभा, नवीन जीवन का संचार करेगी। इसकी सबसे बड़ी विशेषता यह है कि इसमें निजी संपत्ति पर मनुष्य का अधिकार ज्यों का त्यों बना रहता है और इसके साथ ही बहुत से लोग अपने साधनों और परिश्रम को सामूहिक रूप प्रदान करके अधिक उत्पादन में समर्थ हो सकते हैं।

SubQuestion No : 17

Q.17 इस गद्यांश का सर्वाधिक उपयुक्त शीर्षक कौन सा है?

Ans

✗ 1. किसानों की समस्याएँ और उनके समाधान

✗ 2. भारत में औद्योगिक क्रांति

✓ 3. सहकारिता का महत्व

✗ 4. सम्पत्ति का व्यक्तिगत अधिकार

Question ID : **4410091515721**
Option 1 ID : **4410095986278**
Option 2 ID : **4410095986277**
Option 3 ID : **4410095986279**
Option 4 ID : **4410095986280**

QuickSarkari.com | WhatsApp Channel | Telegram: t.me/quick_sarkari

Comprehension:

निम्नलिखित गद्यांश को ध्यानपूर्वक पढ़ें और पूछे गए प्रश्नों के उत्तर दें।
भारत जैसे निर्धन देश के लिए सहकारिता की आवश्यकता कौन स्वीकार नहीं करेगा? सहकारिता हमारे ग्रामीण क्षेत्रों के आर्थिक विकास में विशेष रूप से सहायक सिद्ध होगी। हमारा देश कृषि-प्रधान है। यहाँ की 75 प्रतिशत से भी अधिक जनता कृषि-कार्य से अपनी जीविका उपार्जन करती है। कृषकों की दशा दयनीय है। उनके पास छोटे-छोटे खेत हैं, पैसा नहीं है, बल्कि वे ऋण-ग्रस्त हैं। उनके खेतों से बहुत कम उपज होती है और वह भी प्रायः लगान एवं ऋण चुकाने में समाप्त हो जाती है। बेचारों के पास खाने भर को अन्न नहीं बच पाता। ऐसी दशा में सहकारिता ही उनकी रक्षा कर सकेगी। यही हमारे भूखे नंगे किसानों की भोजन-वस्त्र की समस्या हल करेगी। यही हमारे किसानों के अस्थि-पंजर शरीर में नवीन रक्त, नवीन आभा, नवीन जीवन का संचार करेगी। इसकी सबसे बड़ी विशेषता यह है कि इसमें निजी संपत्ति पर मनुष्य का अधिकार ज्यों का त्यों बना रहता है और इसके साथ ही बहुत से लोग अपने साधनों और परिश्रम को सामूहिक रूप प्रदान करके अधिक उत्पादन में समर्थ हो सकते हैं।

SubQuestion No : 18

Q.18 गद्यांश के अनुसार निम्न में से कौन-सा कथन सही है?

Ans

✗ 1. किसान बहुत अधिक उपज प्राप्त करते हैं।

✗ 2. ग्रामीण क्षेत्रों में कोई भी समस्या नहीं है।

✗ 3. सहकारिता निजी संपत्ति को समाप्त कर देती है।

✓ 4. किसानों की दशा ऋण-ग्रस्त और दयनीय है।

Question ID : **4410091515725**
Option 1 ID : **4410095986294**
Option 2 ID : **4410095986296**
Option 3 ID : **4410095986293**
Option 4 ID : **4410095986295**

Comprehension:

निम्नलिखित गद्यांश को ध्यानपूर्वक पढ़ें और पूछे गए प्रश्नों के उत्तर दें।
भारत जैसे निर्धन देश के लिए सहकारिता की आवश्यकता कौन स्वीकार नहीं करेगा? सहकारिता हमारे ग्रामीण क्षेत्रों के आर्थिक विकास में विशेष रूप से सहायक सिद्ध होगी। हमारा देश कृषि-प्रधान है। यहाँ की 75 प्रतिशत से भी अधिक जनता कृषि-कार्य से अपनी जीविका उपार्जन करती है। कृषकों की दशा दयनीय है। उनके पास छोटे-छोटे खेत हैं, पैसा नहीं है, बल्कि वे ऋण-ग्रस्त हैं। उनके खेतों से बहुत कम उपज होती है और वह भी प्रायः लगान एवं ऋण चुकाने में समाप्त हो जाती है। बेचारों के पास खाने भर को अन्न नहीं बच पाता। ऐसी दशा में सहकारिता ही उनकी रक्षा कर सकेगी। यही हमारे भूखे नंगे किसानों की भोजन-वस्त्र की समस्या हल करेगी। यही हमारे किसानों के अस्थि-पंजर शरीर में नवीन रक्त, नवीन आभा, नवीन जीवन का संचार करेगी। इसकी सबसे बड़ी विशेषता यह है कि इसमें निजी संपत्ति पर मनुष्य का अधिकार ज्यों का त्यों बना रहता है और इसके साथ ही बहुत से लोग अपने साधनों और परिश्रम को सामूहिक रूप प्रदान करके अधिक उत्पादन में समर्थ हो सकते हैं।

SubQuestion No : 19

Q.19 गद्यांश का केंद्रीय विषय क्या है?

Ans

✗ 1. कृषि में नई तकनीक

✗ 2. ग्रामीण जीवन की कठिनाइयाँ

✓ 3. सहकारिता से किसानों का उत्थान

✗ 4. सरकारी नीतियों की आलोचना

Question ID : **4410091515723**
Option 1 ID : **4410095986285**
Option 2 ID : **4410095986286**
Option 3 ID : **4410095986287**
Option 4 ID : **4410095986288**

QuickSarkari.com | WhatsApp Channel | Telegram: t.me/quick_sarkari

Comprehension:

निम्नलिखित गद्यांश को ध्यानपूर्वक पढ़ें और पूछे गए प्रश्नों के उत्तर दें।
भारत जैसे निर्धन देश के लिए सहकारिता की आवश्यकता कौन स्वीकार नहीं करेगा? सहकारिता हमारे ग्रामीण क्षेत्रों के आर्थिक विकास में विशेष रूप से सहायक सिद्ध होगी। हमारा देश कृषि-प्रधान है। यहाँ की 75 प्रतिशत से भी अधिक जनता कृषि-कार्य से अपनी जीविका उपार्जन करती है। कृषकों की दशा दयनीय है। उनके पास छोटे-छोटे खेत हैं, पैसा नहीं है, बल्कि वे ऋण-ग्रस्त हैं। उनके खेतों से बहुत कम उपज होती है और वह भी प्रायः लगान एवं ऋण चुकाने में समाप्त हो जाती है। बेचारों के पास खाने भर को अन्न नहीं बच पाता। ऐसी दशा में सहकारिता ही उनकी रक्षा कर सकेगी। यही हमारे भूखे नंगे किसानों की भोजन-वस्त्र की समस्या हल करेगी। यही हमारे किसानों के अस्थि-पंजर शरीर में नवीन रक्त, नवीन आभा, नवीन जीवन का संचार करेगी। इसकी सबसे बड़ी विशेषता यह है कि इसमें निजी संपत्ति पर मनुष्य का अधिकार ज्यों का त्यों बना रहता है और इसके साथ ही बहुत से लोग अपने साधनों और परिश्रम को सामूहिक रूप प्रदान करके अधिक उत्पादन में समर्थ हो सकते हैं।

SubQuestion No : 20

Q.20 गद्यांश में प्रयुक्त शब्द "अस्थि-पंजर" का अर्थ क्या है?

Ans

✗ 1. कठोर परिश्रम

✓ 2. हड्डियों का ढाँचा

✗ 3. प्राकृतिक संरचना

✗ 4. उपजाऊ भूमि

Question ID : **4410091515726**
Option 1 ID : **4410095986300**
Option 2 ID : **4410095986297**
Option 3 ID : **4410095986298**
Option 4 ID : **4410095986299**

QuickSarkari

Quick Sarkari

Thank you for studying with QuickSarkari!

Get the latest Sarkari Naukri notifications, admit cards, results, answer keys and free previous-year papers first - follow us on WhatsApp and Telegram.

Visit www.quicksarkari.com

Join our WhatsApp Channel

https://whatsapp.com/channel/0029VaxxbrREquiPoXTWM229

Join our Telegram Channel

https://t.me/quick_sarkari

Share this PDF with your friends preparing for DSSSB exams.