DSSSB PREVIOUS YEAR PAPER WITH ANSWER KEY

DSSSB Assistant Security Officer

2 March 2026 · Shift 1

डीएसएसएसबी सहायक सुरक्षा अधिकारी – 2 मार्च 2026, शिफ्ट 1 का प्रश्न पत्र, उत्तर कुंजी सहित

200	120 min	1 / −0.25	EN + HI
Questions / प्रश्न	Duration / समय	Marks per Q / अंक	Language / भाषा

Sections: General intelligence and Reasoning Ability, General Awareness, Arithmetical and Numerical Ability, English Language and Comprehension, Hindi Language and Comprehension

INSIDE THIS PDF / इस PDF में

Question Paper in English + Hindi with Answer Key (correct option marked in green) + answer table — Page 2–51
प्रश्न पत्र अंग्रेज़ी + हिंदी में, उत्तर कुंजी सहित (सही विकल्प हरे रंग में) + उत्तर तालिका

Official DSSSB Response Sheet with Answer Key (correct option ticked in green) — Page 52–122
आधिकारिक DSSSB रिस्पॉन्स शीट, उत्तर कुंजी सहित (सही विकल्प हरे टिक से)

HOW TO USE THIS PAPER / इस पेपर का उपयोग कैसे करें

1. Attempt the paper first as a timed online mock test (link below).
   पहले नीचे दिए लिंक से इसे टाइमर के साथ ऑनलाइन मॉक टेस्ट के रूप में हल करें।
2. Check your score, section-wise analysis and solutions online.
   ऑनलाइन अपना स्कोर, खंड-वार विश्लेषण और हल देखें।
3. Use this PDF for revision. Correct answers are shown in green.
   दोहराने के लिए इस PDF का उपयोग करें। सही उत्तर हरे रंग में दिए गए हैं।

Attempt this paper as a FREE online mock test

इस पेपर को फ्री ऑनलाइन मॉक टेस्ट के रूप में हल करें – टाइमर, स्कोर और हल के साथ

https://quicksarkari.com/dsssb-assistant-security-officer-02-march-2026-shift-1-mock-test/

All DSSSB Assistant Security Officer papers and mock tests: **quicksarkari.com/dsssb-mock-test/#assistant-security-officer**

Join WhatsApp Channel | Join Telegram Channel

DSSSB Assistant Security Officer – Question Paper (English + Hindi)

DSSSB सहायक सुरक्षा अधिकारी – प्रश्न पत्र (अंग्रेज़ी + हिंदी)

Exam held on 2 March 2026, Shift 1 · 200 questions · correct answers marked ✔ in green
परीक्षा तिथि 2 मार्च 2026, शिफ्ट 1 · 200 प्रश्न · सही उत्तर हरे रंग में ✔ से चिह्नित

> The official paper for this shift was in English. The Hindi version of each question is a translation prepared by QuickSarkari; the language-section questions are shown as asked.
> इस शिफ्ट का आधिकारिक प्रश्न पत्र अंग्रेज़ी में था। प्रत्येक प्रश्न का हिंदी संस्करण QuickSarkari द्वारा तैयार किया गया अनुवाद है; भाषा खंड के प्रश्न मूल रूप में दिए गए हैं।

General intelligence and Reasoning Ability

Q.1 All 69 people are standing in a row facing North. Danny is 9th from the left end while Richard is 15th from the right end. How many people are there between Danny and Richard?
सभी 69 व्यक्ति उत्तर की ओर मुख करके एक पंक्ति में खड़े हैं। डैनी बाएँ छोर से 9वें स्थान पर है जबकि रिचर्ड दाएँ छोर से 15वें स्थान पर है। डैनी और रिचर्ड के बीच कितने व्यक्ति हैं?

(1) 46
(2) 45 ✔
(3) 44
(4) 43

Q.2 Refer to the following letter series and answer the question. Counting to be done from left to right only.
(Left) Z D I N H F Q C V V U H K T M A T L Z (Right)
How many such vowels are there each of which is immediately preceded by a consonant and also immediately followed by a consonant?
निम्नलिखित अक्षर श्रृंखला को देखें और प्रश्न का उत्तर दें। गिनती केवल बाएँ से दाएँ की जानी है।
(बाएँ) Z D I N H F Q C V V U H K T M A T L Z (दाएँ)
ऐसे कितने स्वर हैं जिनमें से प्रत्येक के ठीक पहले एक व्यंजन है और ठीक बाद में भी एक व्यंजन है?

(1) One / एक
(2) Three / तीन ✔
(3) Two / दो
(4) Four / चार

Q.3 Seven boxes A, L, R, M, I, N and G are kept one over the other but not necessarily in the same order.
N is kept immediately above G. L is kept immediately above R. Only I is kept above
A. Only two boxes are kept above N. L is not kept at third position from the bottom.
How many boxes are kept between M and I?
सात बक्से A, L, R, M, I, N और G एक के ऊपर एक रखे गए हैं, लेकिन जरूरी नहीं कि इसी क्रम में हों।
N को G के ठीक ऊपर रखा गया है। L को R के ठीक ऊपर रखा गया है। केवल I को A के ऊपर रखा गया है। N के ऊपर केवल दो बक्से रखे गए हैं।
L को नीचे से तीसरे स्थान पर नहीं रखा गया है।
M और I के बीच कितने बक्से रखे गए हैं?

(1) One / एक
(2) Two / दो
(3) Three / तीन ✔
(4) Four / चार

Q.4 W,I,N,T,E,R and S are sitting around a circular table facing the centre of the table.
E sits to the immediate left of S. R sits to the immediate left of I. I sits second to the left of T. W sits third to the left of S.
Who sits fourth to the right of N?

W, I, N, T, E, R और S एक वृत्ताकार मेज के चारों ओर मेज के केंद्र की ओर मुख करके बैठे हैं।
E, S के ठीक बाएँ बैठा है। R, I के ठीक बाएँ बैठा है। I, T के बाएँ से दूसरे स्थान पर बैठा है। W, S के बाएँ से तीसरे स्थान पर बैठा है।
N के दाएँ से चौथे स्थान पर कौन बैठा है?

(1) I
(2) W
(3) T ✔
(4) R

Q.5 Seven people F, G, H, Q, R, S and T are sitting around a circular table facing the center of the table. Only three people sit between T and F when counted from the right of F. Only three people sit between S and R when counted from the left of S.
Q sits to the immediate right of T. H is an immediate neighbor of F as well as R.
Who sits to the second to the left of G?

सात व्यक्ति F, G, H, Q, R, S और T एक वृत्ताकार मेज के चारों ओर मेज के केंद्र की ओर मुख करके बैठे हैं। F के दाएँ से गिनने पर T और F के बीच केवल तीन व्यक्ति बैठे हैं। S के बाएँ से गिनने पर S और R के बीच केवल तीन व्यक्ति बैठे हैं।
Q, T के ठीक दाएँ बैठा है। H, F और R दोनों का निकटतम पड़ोसी है।
G के बाएँ से दूसरे स्थान पर कौन बैठा है?

(1) S
(2) Q
(3) H ✔
(4) T

Quick Sarkari

Q.6 In a certain code language, 'A x B' means 'A is the son of B'
'A - B' means ' A is the sister of B'
'A > B' means 'A is the wife of B'
'A < B' means ' A is the father of B'
Which of the following mean(s) that B is the son's wife's father of G?
I. B < C - D > F x G
II. B < C x D - F > G
III. B > C x D < F - G
IV. B - C x D > F < G

एक निश्चित कूट भाषा में, 'A x B' का अर्थ है 'A, B का पुत्र है'
'A - B' का अर्थ है 'A, B की बहन है'
'A > B' का अर्थ है 'A, B की पत्नी है'
'A < B' का अर्थ है 'A, B का पिता है'
निम्नलिखित में से किसका/किनका अर्थ है कि B, G के पुत्र की पत्नी का पिता है?
I. B < C - D > F x G
II. B < C x D - F > G
III. B > C x D < F - G
IV. B - C x D > F < G

(1) Both II and IV / II और IV दोनों
(2) **Only I / केवल I** ✔
(3) Both I and III / I और III दोनों
(4) Only III / केवल III

Q.7 Seven people, G, L, A, M, O, U and R are sitting in a row, facing north.
Only two people sit between O and G. Only A sits to the right of U. Only one person sits between G and U. L sits at some place to the right of R but at some place to the left of M.
Who sits third from the right end of the line?

सात व्यक्ति G, L, A, M, O, U और R उत्तर की ओर मुख करके एक पंक्ति में बैठे हैं।
O और G के बीच केवल दो व्यक्ति बैठे हैं। U के दाएँ केवल A बैठा है। G और U के बीच केवल एक व्यक्ति बैठा है। L, R के दाएँ किसी स्थान पर लेकिन M के बाएँ किसी स्थान पर बैठा है।
पंक्ति के दाएँ छोर से तीसरे स्थान पर कौन बैठा है?

(1) G
(2) R
(3) A
(4) **M** ✔

Q.8 Refer to the following letter series and answer the question that follows. Counting to be done from left to right only.
(Left) Y W F F J F G X P G B W A C U E C X H C Y (Right)
How many such vowels are there, each of which is immediately preceded by a vowel and also immediately followed by a consonant?

निम्नलिखित अक्षर श्रृंखला को देखें और नीचे दिए गए प्रश्न का उत्तर दें। गिनती केवल बाएँ से दाएँ की जानी है।
(बाएँ) Y W F F J F G X P G B W A C U E C X H C Y (दाएँ)
ऐसे कितने स्वर हैं, जिनमें से प्रत्येक के ठीक पहले एक स्वर है और ठीक बाद में एक व्यंजन है?

(1) One / एक ✔
(2) None / कोई नहीं
(3) Two / दो
(4) Three / तीन

Q.9 Refer to the following letter series and answer the question. Counting to be done from left to right only.
(Left) L V Y I S L F T A N T A K T P C U B F (Right)
How many such consonants are there each of which is immediately preceded by a vowel and also immediately followed by a consonant?

निम्नलिखित अक्षर श्रृंखला को देखें और प्रश्न का उत्तर दें। गिनती केवल बाएँ से दाएँ की जानी है।
(बाएँ) L V Y I S L F T A N T A K T P C U B F (दाएँ)
ऐसे कितने व्यंजन हैं जिनमें से प्रत्येक के ठीक पहले एक स्वर है और ठीक बाद में एक व्यंजन है?

(1) One / एक
(2) Four / चार ✔
(3) Two / दो
(4) Three / तीन

Q.10 In a row of people all facing North, Andy is 3rd from the left end. Terrence is 11th from the left end. Terrence is exactly between Andy and Keith. If Keith is 6th from the right end of the line, how many people are there in the row?

उत्तर की ओर मुख करके खड़े व्यक्तियों की एक पंक्ति में, एंडी बाएँ छोर से तीसरे स्थान पर है। टेरेंस बाएँ छोर से 11वें स्थान पर है। टेरेंस, एंडी और कीथ के ठीक बीच में है। यदि कीथ पंक्ति के दाएँ छोर से 6वें स्थान पर है, तो पंक्ति में कितने व्यक्ति हैं?

(1) 22
(2) 23
(3) 24 ✔
(4) 21

Q.11 In a certain code language, 'HIDE' is coded as '9768' and 'DINE' is coded as '4869'. What is the code for 'N' in the given code language?

एक निश्चित कूट भाषा में, 'HIDE' को '9768' के रूप में कूटबद्ध किया जाता है और 'DINE' को '4869' के रूप में कूटबद्ध किया जाता है।
दी गई कूट भाषा में 'N' के लिए कूट क्या है?

(1) 8
(2) 7
(3) 4 ✔
(4) 6

Q.12 Each of C, E, R, T, A, I and N has an exam on a different day of a week starting from Monday and ending on Sunday of the same week. Only three people have exam between T and E. E has exam on the last day of the week. Only one person has exam between N and I. C has exam immediately the day before A. R doesn't have exam on Friday. How many people have exam between R and C?

C, E, R, T, A, I और N में से प्रत्येक की परीक्षा एक ही सप्ताह के सोमवार से शुरू होकर रविवार को समाप्त होने वाले अलग-अलग दिन है। T और E के बीच केवल तीन व्यक्तियों की परीक्षा है। E की परीक्षा सप्ताह के अंतिम दिन है। N और I के बीच केवल एक व्यक्ति की परीक्षा है। C की परीक्षा A से ठीक एक दिन पहले है। R की परीक्षा शुक्रवार को नहीं है। R और C के बीच कितने व्यक्तियों की परीक्षा है?

(1) Four / चार

(2) One / एक

(3) **Three / तीन** ✔

(4) Two / दो

Q.13 In a certain code language, 'TRAM' is coded as '4851' and 'GRAM' is coded as '4183'. What is the code for 'G' in the given code language?

एक निश्चित कूट भाषा में, 'TRAM' को '4851' के रूप में कूटबद्ध किया जाता है और 'GRAM' को '4183' के रूप में कूटबद्ध किया जाता है। दी गई कूट भाषा में 'G' के लिए कूट क्या है?

(1) **3** ✔

(2) 4

(3) 1

(4) 8

Q.14 In a certain language, 'A + B' means 'A is the son of B'
'A - B' means 'A is the brother of B'
'A x B' means 'A is the wife of B'
'A & B' means 'A is the father of B'
Which of the following mean(s) that G is the wife's brother of P?
I. G + F & K - L x P
II. G & F x K + L - P
III. G & F - K x L + P
IV. G x F & K - L + P

एक निश्चित भाषा में, 'A + B' का अर्थ है 'A, B का पुत्र है'
'A - B' का अर्थ है 'A, B का भाई है'
'A x B' का अर्थ है 'A, B की पत्नी है'
'A & B' का अर्थ है 'A, B का पिता है'
निम्नलिखित में से किसका/किनका अर्थ है कि G, P की पत्नी का भाई है?
I. G + F & K - L x P
II. G & F x K + L - P
III. G & F - K x L + P
IV. G x F & K - L + P

(1) Both I and IV / I और IV दोनों

(2) Both II and III / II और III दोनों

(3) Only IV / केवल IV

(4) **Only I / केवल I** ✔

Q.15 Refer to the following series and answer the question (all numbers are single-digit numbers only) Counting to be done from left to right only.
(Left) 4 9 3 5 2 7 6 8 1 7 4 9 2 3 8 5 1 6 9 2 7 3 4 1 8 6 5 (Right)
How many such odd digits are there each of which is immediately followed by an even digit and also immediately preceded by another even digit?

निम्नलिखित श्रृंखला को देखें और प्रश्न का उत्तर दें (सभी संख्याएँ केवल एक-अंकीय संख्याएँ हैं)। गिनती केवल बाएँ से दाएँ की जानी है।
(बाएँ) 4 9 3 5 2 7 6 8 1 7 4 9 2 3 8 5 1 6 9 2 7 3 4 1 8 6 5 (दाएँ)
ऐसे कितने विषम अंक हैं जिनमें से प्रत्येक के ठीक बाद एक सम अंक है और ठीक पहले भी एक अन्य सम अंक है?

(1) One / एक
(2) Two / दो
(3) More than three / तीन से अधिक ✔
(4) Three / तीन

Q.16 Refer to the following letter series and answer the question. Counting to be done from left to right only.
(Left) K L M O P Q R S U V W X Y (Right)
How many letters are immediately followed by vowels?

निम्नलिखित अक्षर श्रृंखला को देखें और प्रश्न का उत्तर दें। गिनती केवल बाएँ से दाएँ की जानी है।
(बाएँ) K L M O P Q R S U V W X Y (दाएँ)
कितने अक्षरों के ठीक बाद स्वर आते हैं?

(1) One / एक
(2) Three / तीन
(3) Four / चार
(4) Two / दो ✔

Q.17 Refer to the following letter, symbol series and answer the question. Counting to be done from left to right only:
(Left) E * A Ω I & U @ O % E * A Ω I @ U & O # E (Right)
How many such symbols are there, each of which is immediately preceded by a vowel and also immediately followed by another symbol?

निम्नलिखित अक्षर, प्रतीक श्रृंखला को देखें और प्रश्न का उत्तर दें। गिनती केवल बाएँ से दाएँ की जानी है:
(बाएँ) E * A Ω I & U @ O % E * A Ω I @ U & O # E (दाएँ)
ऐसे कितने प्रतीक हैं, जिनमें से प्रत्येक के ठीक पहले एक स्वर है और ठीक बाद में एक अन्य प्रतीक है?

(1) Two / दो
(2) None / कोई नहीं ✔
(3) One / एक
(4) Three / तीन

Q.18 Refer to the following letter, symbol series and answer the question. Counting to be done from left to right only (Left) N & € Y R © L @ R Z Q # Y H @ U & F * * Y % (Right)
How many such letter are there each of which is immediately preceded by a letter and also immediately followed by a symbol?
निम्नलिखित अक्षर, प्रतीक श्रृंखला को देखें और प्रश्न का उत्तर दें। गिनती केवल बाएँ से दाएँ की जानी है (बाएँ) N & € Y R © L @ R Z Q # Y H @ U & F * * Y % (दाएँ)
ऐसे कितने अक्षर हैं जिनमें से प्रत्येक के ठीक पहले एक अक्षर है और ठीक बाद में एक प्रतीक है?

(1) Four / चार
(2) Five / पाँच
(3) Two / दो
(4) Three / तीन ✔

Q.19 Refer to the following letter series and answer the question. Counting to be done from left to right only. (Left) N G M D J G U J S O R P T X Y N G P O (Right)
How many such consonants are there each of which is immediately preceded by a vowel and also immediately followed by a consonant?
निम्नलिखित अक्षर श्रृंखला को देखें और प्रश्न का उत्तर दें। गिनती केवल बाएँ से दाएँ की जानी है।
(बाएँ) N G M D J G U J S O R P T X Y N G P O (दाएँ)
ऐसे कितने व्यंजन हैं जिनमें से प्रत्येक के ठीक पहले एक स्वर है और ठीक बाद में एक व्यंजन है?

(1) Three / तीन
(2) One / एक
(3) Two / दो ✔
(4) Four / चार

Q.20 W, I, N, T, E, R and S are sitting around a circular table facing the centre of the table.
Only four people sit between I and N when counted from the right of I. I sits third to the left of W. E sits third to the left of S. R is an immediate neighbor of both N and W.
How many people sit between T and R when counted from the right of T?
W, I, N, T, E, R और S एक वृत्ताकार मेज के चारों ओर मेज के केंद्र की ओर मुख करके बैठे हैं।
I के दाएँ से गिनने पर I और N के बीच केवल चार व्यक्ति बैठे हैं। I, W के बाएँ से तीसरे स्थान पर बैठा है। E, S के बाएँ से तीसरे स्थान पर बैठा है। R, N और W दोनों का निकटतम पड़ोसी है।
T के दाएँ से गिनने पर T और R के बीच कितने व्यक्ति बैठे हैं?

(1) Two / दो ✔
(2) Three / तीन
(3) One / एक
(4) Four / चार

Q.21 AE 3 is related to CG 9 in a certain way. In the same way, DH 4 is related to FJ 16.
To which of the following is MP 5 related to following the same logic?
AE 3 एक निश्चित प्रकार से CG 9 से संबंधित है। उसी प्रकार, DH 4, FJ 16 से संबंधित है।
उसी तर्क का अनुसरण करते हुए MP 5 निम्नलिखित में से किससे संबंधित है?

(1) WP 25
(2) LS 36
(3) OR 25 ✔
(4) MS 36

Q.22 Select the pair which follows the same pattern as that followed by the two set of pairs given below.
Both pairs follow the same pattern.
ZMR : UHM GMX : BHS

उस युग्म का चयन करें जो उसी पैटर्न का अनुसरण करता है जिसका अनुसरण नीचे दिए गए युग्मों के दो समूह करते हैं। दोनों युग्म एक ही पैटर्न का अनुसरण करते हैं।
ZMR : UHM GMX : BHS

(1) DSU : ZOQ
(2) DSU : YNP ✔
(3) ZOQ : XMO
(4) JYA : IXZ

Q.23 Select the pair which follows the same pattern as that followed by the two set of pairs given below.
Both pairs follow the same pattern.
WAD−GKN UYB−EIL

उस युग्म का चयन करें जो उसी पैटर्न का अनुसरण करता है जिसका अनुसरण नीचे दिए गए युग्मों के दो समूह करते हैं। दोनों युग्म एक ही पैटर्न का अनुसरण करते हैं।
WAD−GKN UYB−EIL

(1) TWY−CGJ
(2) TXA−CHJ
(3) TWY−DHK
(4) TXA−DHK ✔

Q.24 Below are given two sets of numbers. In each set of numbers, a certain mathematical operation on the first number results in the second number.
Similarly, certain mathematical operation on the second number results in the third number and so on.
Which of the given options follows the same set of operations as in question?
(NOTE – A two / three-digit number cannot be broken into individual digits for operations e.g. if 37 is followed by 10, the operation cannot be 3+7 as a two-digit number cannot be broken into individual digits.)
5 – 11 – 31 – 60 8 – 17 – 49 – 96

नीचे संख्याओं के दो समुच्चय दिए गए हैं। संख्याओं के प्रत्येक समुच्चय में, पहली संख्या पर एक निश्चित गणितीय संक्रिया करने पर दूसरी संख्या प्राप्त होती है।
इसी प्रकार, दूसरी संख्या पर एक निश्चित गणितीय संक्रिया करने पर तीसरी संख्या प्राप्त होती है और इसी तरह आगे भी। दिए गए विकल्पों में से कौन-सा विकल्प प्रश्न में दिए गए संक्रियाओं के समुच्चय का ही अनुसरण करता है?
(ध्यान दें – किसी दो / तीन अंकों वाली संख्या को संक्रियाओं के लिए अलग-अलग अंकों में नहीं तोड़ा जा सकता है, उदाहरण के लिए यदि 37 के बाद 10 आता है, तो संक्रिया 3+7 नहीं हो सकती क्योंकि किसी दो अंकों वाली संख्या को अलग-अलग अंकों में नहीं तोड़ा जा सकता है।)
5 – 11 – 31 – 60 8 – 17 – 49 – 96

(1) 7 – 15 – 43 – 84 ✔
(2) 6 – 13 – 27 – 52
(3) 11 – 23 – 67 – 136
(4) 9 – 19 – 55 – 104

Q.25 What will come in the place of '?' in the following equation, if '+' and '-' are interchanged and 'x' and '÷' are interchanged?
4 ÷ 8 + 13 - 15 × 1 = ?

यदि '+' और '-' को आपस में बदल दिया जाए तथा 'x' और '÷' को आपस में बदल दिया जाए, तो निम्नलिखित समीकरण में '?' के स्थान पर क्या आएगा?
4 ÷ 8 + 13 - 15 × 1 = ?

(1) 35
(2) 36
(3) 32
(4) **34 ✔**

Q.26 In the following triad, each group of letters is related to the subsequent one following a certain logic. Select from the given options, the one that follows the same logic.
GOLE - OGLE - ELOG LORD - OLRD - DROL

निम्नलिखित त्रय में, अक्षरों का प्रत्येक समूह एक निश्चित तर्क के आधार पर अगले समूह से संबंधित है। दिए गए विकल्पों में से उसका चयन करें जो उसी तर्क का अनुसरण करता है।
GOLE - OGLE - ELOG LORD - OLRD - DROL

(1) GOAD - OGAD - OADG
(2) BIFE - BFIE - EFIB
(3) **LATE - ALTE - ETAL ✔**
(4) BUST - UBST - TUSB

Q.27 What should come in place of ? in the given series based on the English alphabetical order?
WYZ ACD EGH IKL ?

अंग्रेजी वर्णमाला क्रम के आधार पर दी गई श्रृंखला में ? के स्थान पर क्या आना चाहिए?
WYZ ACD EGH IKL ?

(1) MNP
(2) MNO
(3) **MOP ✔**
(4) MPO

Quick Sarkari

Q.28 Select the set in which the numbers are related in the same way as are the numbers of the given sets. (NOTE: Operations should be performed on the whole numbers, without breaking down the numbers into its constituent digits. E.g. 13 – Operations on 13 such as adding/subtracting/multiplying etc. to 13 can be performed. Breaking down 13 into 1 and 3 and then performing mathematical operations on 1 and 3 is not allowed.)
(195, 137, 79)
(264, 206, 148)
उस समुच्चय का चयन करें जिसमें संख्याएँ उसी प्रकार संबंधित हैं जिस प्रकार दिए गए समुच्चयों की संख्याएँ संबंधित हैं।
(ध्यान दें: संक्रियाएँ पूर्ण संख्याओं पर की जानी चाहिए, संख्याओं को उनके घटक अंकों में तोड़े बिना। उदाहरण के लिए 13 – 13 पर संक्रियाएँ जैसे 13 में जोड़ना/घटाना/गुणा करना आदि किया जा सकता है। 13 को 1 और 3 में तोड़कर फिर 1 और 3 पर गणितीय संक्रियाएँ करने की अनुमति नहीं है।)
(195, 137, 79)
(264, 206, 148)

(1) (282, 214, 166)
(2) (228, 160, 122)
(3) (246, 188, 140)
(4) (213, 155, 97) ✔

Q.29 If the water source is placed along X-Y, as shown in the figure, which of the given options will be the water reflection of the given figure.



यदि जल स्रोत को आकृति में दर्शाए अनुसार X-Y के अनुदिश रखा जाए, तो दिए गए विकल्पों में से कौन-सा विकल्प दी गई आकृति का जल प्रतिबिंब होगा।

(1) ꓤƆꟻΛ⊥S
(2) ЯƆꟻVTS
(3) ЯCFV⊥S
(4) ꓤƆꟻΛ⊥S ✔

Q.30 If 'A' stands for '÷', 'B' stands for '×', 'C' stands for '+' and 'D' stands for '−', what will come in place of the question mark '?' in the following equation?
114 C 9 B 4 D 90 A 10 = ?
यदि 'A' का अर्थ '÷', 'B' का अर्थ '×', 'C' का अर्थ '+' और 'D' का अर्थ '−' है, तो निम्नलिखित समीकरण में प्रश्न चिह्न '?' के स्थान पर क्या आएगा?
114 C 9 B 4 D 90 A 10 = ?

(1) 114
(2) 141 ✔
(3) 111
(4) 140

Q.31 Based on the alphabetical order, three of the following four are alike in a certain way and thus form a group. Which is the one that does not belong to that group?
(Note: The odd man out is not based on the number of consonants/vowels or their position in the letter cluster)
वर्णमाला क्रम के आधार पर, निम्नलिखित चार में से तीन किसी निश्चित प्रकार से एक समान हैं और इस प्रकार एक समूह बनाते हैं। वह कौन-सा है जो उस समूह से संबंधित नहीं है?
(ध्यान दें: असंगत का चयन व्यंजनों/स्वरों की संख्या या अक्षर-समूह में उनकी स्थिति के आधार पर नहीं है)

(1) UXS ✔
(2) ORL
(3) LOI
(4) RUO

Q.32 Based on the alphabetical order, three of the following four are alike in a certain way and thus form a group. Which is the one that does not belong to that group?
(Note: The odd man out is not based on the number of consonants/vowels or their position in the letter cluster)
वर्णमाला क्रम के आधार पर, निम्नलिखित चार में से तीन किसी निश्चित प्रकार से एक समान हैं और इस प्रकार एक समूह बनाते हैं। वह कौन-सा है जो उस समूह से संबंधित नहीं है?
(ध्यान दें: असंगत का चयन व्यंजनों/स्वरों की संख्या या अक्षर-समूह में उनकी स्थिति के आधार पर नहीं है)

(1) AFN
(2) CHP
(3) DIT ✔
(4) BGO

Q.33 Based on the English alphabetical order, three of the following four letter cluster pairs are alike in a certain way and thus form a group. Which is the one that does not belong to that group?
(Note: The odd man out is not based on the number of consonants/vowels or their position in the letter cluster)
अंग्रेजी वर्णमाला क्रम के आधार पर, निम्नलिखित चार अक्षर-समूह युग्मों में से तीन किसी निश्चित प्रकार से एक समान हैं और इस प्रकार एक समूह बनाते हैं। वह कौन-सा है जो उस समूह से संबंधित नहीं है?
(ध्यान दें: असंगत का चयन व्यंजनों/स्वरों की संख्या या अक्षर-समूह में उनकी स्थिति के आधार पर नहीं है)

(1) FH - FI ✔
(2) NQ - OR
(3) LO - MP
(4) IL - JM

Q.34 147 is related to 21 following a certain logic. Following the same logic, 126 is related to 18. To which of the following is 182 related, following the same logic?
(NOTE: Operations should be performed on the whole numbers, without breaking down the numbers into their constituent digits. E.g. 13 – Operations on 13 such as adding/subtracting/multiplying to 13 can be performed. Breaking down 13 into 1 and 3 and then performing mathematical operations on 1 and 3 is not allowed.)

147 एक निश्चित तर्क के आधार पर 21 से संबंधित है। उसी तर्क के आधार पर, 126, 18 से संबंधित है। उसी तर्क का अनुसरण करते हुए, 182 निम्नलिखित में से किससे संबंधित है?
(ध्यान दें: संक्रियाएँ पूर्ण संख्याओं पर की जानी चाहिए, संख्याओं को उनके घटक अंकों में तोड़े बिना। उदाहरण के लिए 13 – 13 पर संक्रियाएँ जैसे 13 में जोड़ना/घटाना/गुणा करना किया जा सकता है। 13 को 1 और 3 में तोड़कर फिर 1 और 3 पर गणितीय संक्रियाएँ करने की अनुमति नहीं है।)

(1) 16
(2) 26 ✔
(3) 18
(4) 22

Q.35 Identify the figure given in the options which when put in place of ? will logically complete the series.

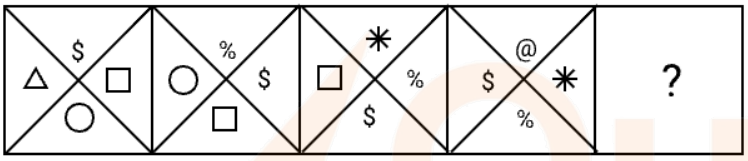

विकल्पों में दी गई उस आकृति की पहचान करें जिसे ? के स्थान पर रखने पर श्रृंखला तार्किक रूप से पूर्ण हो जाएगी।

(1)


(2)


✔

(3)
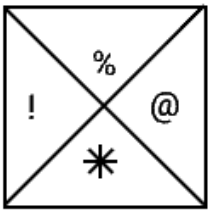

(4)
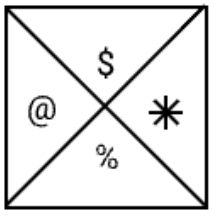

Quick Sarkari

Q.36 Below are given two sets of numbers. In each set of numbers, a certain mathematical operation on the first number results in the second number.
Similarly, certain mathematical operation on the second number results in the third number and so on.
Which of the given options follows the same set of operations as in question?
(NOTE – A two/three digit number cannot be broken into individual digits for operations e.g. if 37 is followed by 10, the operation cannot be 3+7 as a two digit number cannot be broken into individual digits.)
2 – 4 – 34 – 44, 8 – 16 – 46 – 56

नीचे संख्याओं के दो समुच्चय दिए गए हैं। संख्याओं के प्रत्येक समुच्चय में, पहली संख्या पर एक निश्चित गणितीय संक्रिया करने पर दूसरी संख्या प्राप्त होती है।
इसी प्रकार, दूसरी संख्या पर एक निश्चित गणितीय संक्रिया करने पर तीसरी संख्या प्राप्त होती है और इसी तरह आगे भी। दिए गए विकल्पों में से कौन-सा विकल्प प्रश्न में दिए गए संक्रियाओं के समुच्चय का ही अनुसरण करता है?
(ध्यान दें – किसी दो/तीन अंकों वाली संख्या को संक्रियाओं के लिए अलग-अलग अंकों में नहीं तोड़ा जा सकता है, उदाहरण के लिए यदि 37 के बाद 10 आता है, तो संक्रिया 3+7 नहीं हो सकती क्योंकि किसी दो अंकों वाली संख्या को अलग-अलग अंकों में नहीं तोड़ा जा सकता है।)
2 – 4 – 34 – 44, 8 – 16 – 46 – 56

(1) 4 – 8 – 38 – 48 ✔
(2) 4 – 6 – 23 – 44
(3) 6 – 12 – 38 – 48
(4) 6 – 12 – 32 – 48

Q.37 What should come in place of ? in the given series based on the English alphabetical order?
ZAC XBD VCE TDF ?

अंग्रेजी वर्णमाला क्रम के आधार पर दी गई श्रृंखला में ? के स्थान पर क्या आना चाहिए?
ZAC XBD VCE TDF ?

(1) SEG
(2) REG ✔
(3) REF
(4) RFH

Q.38 Select the set in which the numbers are related in the same way as are the numbers of the given sets.
(NOTE: Operations should be performed on the whole numbers, without breaking down the numbers into its constituent digits. E.g. 13 – Operations on 13 such as adding/subtracting/multiplying etc. to 13 can be performed. Breaking down 13 into 1 and 3 and then performing mathematical operations on 1 and 3 is not allowed.)
(108, 45, 171)
(162, 59, 265)

उस समुच्चय का चयन करें जिसमें संख्याएँ उसी प्रकार संबंधित हैं जिस प्रकार दिए गए समुच्चयों की संख्याएँ संबंधित हैं।
(ध्यान दें: संक्रियाएँ पूर्ण संख्याओं पर की जानी चाहिए, संख्याओं को उनके घटक अंकों में तोड़े बिना। उदाहरण के लिए 13 – 13 पर संक्रियाएँ जैसे 13 में जोड़ना/घटाना/गुणा करना आदि किया जा सकता है। 13 को 1 और 3 में तोड़कर फिर 1 और 3 पर गणितीय संक्रियाएँ करने की अनुमति नहीं है।)
(108, 45, 171)
(162, 59, 265)

(1) (186, 68, 284)
(2) (178, 64, 264)
(3) (134, 51, 217) ✔
(4) (152, 76, 248)

Q.39 What will come in the place of '?' in the following equation, if '+' and '-' are interchanged and 'x' and '÷' are interchanged?
48 × 45 ÷ 30 + 27 - 32 = ?
यदि '+' और '-' को आपस में बदल दिया जाए तथा 'x' और '÷' को आपस में बदल दिया जाए, तो निम्नलिखित समीकरण में '?' के स्थान पर क्या आएगा?
48 × 45 ÷ 30 + 27 - 32 = ?

(1) 38
(2) 35
(3) **37 ✔**
(4) 39

Q.40 If 1 is added to each odd digit and 2 is subtracted from each even digit in the number 4516738, what will be the difference of the digits which are third from the left and second from the right in the new number thus formed?
यदि संख्या 4516738 में प्रत्येक विषम अंक में 1 जोड़ा जाए और प्रत्येक सम अंक में से 2 घटाया जाए, तो इस प्रकार बनी नई संख्या में बाएँ से तीसरे और दाएँ से दूसरे अंकों का अंतर क्या होगा?

(1) 0
(2) 3
(3) 1
(4) **2 ✔**

General Awareness

Q.41 Under the Citizenship Act, 1955, in how many ways can a person lose their Indian Citizenship?
नागरिकता अधिनियम, 1955 के अंतर्गत, कोई व्यक्ति कितने तरीकों से अपनी भारतीय नागरिकता खो सकता है?

(1) Four ways: Renunciation, Termination, Deprivation, and Marriage / चार तरीके: परित्याग, समाप्ति, वंचन और विवाह
(2) **Three ways: Renunciation, Termination, and Deprivation / तीन तरीके: परित्याग, समाप्ति और वंचन ✔**
(3) Five ways: By Absence, Treason, Renunciation, Termination, and Deprivation / पाँच तरीके: अनुपस्थिति द्वारा, राजद्रोह, परित्याग, समाप्ति और वंचन
(4) Two ways: Deprivation and Naturalization in another country / दो तरीके: वंचन और किसी अन्य देश में देशीयकरण

Q.42 Which of the following sectors is the supplier of labour?
निम्नलिखित में से कौन-सा क्षेत्रक श्रम का आपूर्तिकर्ता है?

(1) **Household / परिवार ✔**
(2) Foreign / विदेशी
(3) Government / सरकार
(4) Firm / फर्म

Q.43 The Indian Parliament consists of the Lok Sabha, the Rajya Sabha, and which other integral component (as per Article 79 of the Constitution)?
भारतीय संसद में लोकसभा, राज्यसभा और (संविधान के अनुच्छेद 79 के अनुसार) कौन-सा अन्य अभिन्न घटक शामिल है?

(1) The Chief Justice of India / भारत के मुख्य न्यायाधीश
(2) **The President of India / भारत के राष्ट्रपति ✔**
(3) The Vice-President of India / भारत के उपराष्ट्रपति
(4) The Prime Minister / प्रधानमंत्री

Q.44 Which plateau, located predominantly in Jharkhand, is distinguished by its rich mineral resources?
मुख्य रूप से झारखंड में स्थित कौन-सा पठार अपने समृद्ध खनिज संसाधनों के लिए प्रसिद्ध है?

(1) Deccan Plateau / दक्कन का पठार
(2) Bundelkhand Plateau / बुंदेलखंड का पठार
(3) Malwa Plateau / मालवा का पठार
(4) **Chota Nagpur Plateau / छोटा नागपुर का पठार ✔**

Q.45 Which of the following is primarily the underlying principle of Lok Adalats?
लोक अदालतों में अंतर्निहित सिद्धांत मुख्य रूप से निम्नलिखित में से कौन-सा है?

(1) Judicial review by High Courts / उच्च न्यायालयों द्वारा न्यायिक पुनर्विलोकन
(2) Adversarial inquiry system / विरोधात्मक जांच प्रणाली
(3) Supreme Court supervision / उच्चतम न्यायालय पर्यवेक्षण
(4) **Conciliation and compromise / सुलह और समझौता ✔**

Q.46 Which Indian state contains the largest extent of the Thar Desert within its boundaries?
किस भारतीय राज्य की सीमाओं के भीतर थार मरुस्थल का सबसे बड़ा विस्तार है?

(1) Punjab / पंजाब
(2) Haryana / हरियाणा
(3) **Rajasthan / राजस्थान ✔**
(4) Gujarat / गुजरात

Q.47 Which demographic indicator specifically relates the number of live births in a year to the number of women in the reproductive age group (15–49 years), rather than to the total population?
कौन-सा जनांकिकीय संकेतक विशेष रूप से एक वर्ष में जीवित जन्मों की संख्या को कुल जनसंख्या के बजाय प्रजनन आयु वर्ग (15–49 वर्ष) की महिलाओं की संख्या से संबंधित करता है?

(1) Net Reproduction Rate (NRR) / शुद्ध पुनरुत्पादन दर (NRR)
(2) Total Fertility Rate (TFR) / कुल प्रजनन दर (TFR)
(3) Crude Birth Rate (CBR) / अशोधित जन्म दर (CBR)
(4) **General Fertility Rate (GFR) / सामान्य प्रजनन दर (GFR) ✔**

Q.48 After the Partition in 1947, which of the following reorganised the bureaucracy and integrated the princely states?
1947 में विभाजन के बाद, निम्नलिखित में से किसने नौकरशाही का पुनर्गठन किया और रियासतोंका एकीकरण किया?

(1) Jawaharlal Nehru / जवाहरलाल नेहरू
(2) Mahatma Gandhi / महात्मा गांधी
(3) Rajendra Prasad / राजेंद्र प्रसाद
(4) **Sardar Vallabhbhai Patel / सरदार वल्लभभाई पटेल ✔**

Q.49 Who assisted Sardar Vallabhbhai Patel in integrating the princely states into the Indian Union?
रियासतों को भारतीय संघ में एकीकृत करने में सरदार वल्लभभाई पटेल की सहायता किसने की?

(1) C. Rajagopalachari / सी. राजगोपालाचारी
(2) Rajendra Prasad / राजेंद्र प्रसाद
(3) **V.P. Menon / वी.पी. मेनन ✔**
(4) B.R. Ambedkar / बी.आर. अंबेडकर

Q.50 Why was the Vernacular Press Act (1878) introduced by the British?

अंग्रेजों द्वारा वर्नाक्युलर प्रेस एक्ट (1878) क्यों लागू किया गया था?

(1) To provide financial aid to local publishers / स्थानीय प्रकाशकों को वित्तीय सहायता प्रदान करने के लिए

(2) To promote newspapers in Indian languages / भारतीय भाषाओं के समाचार पत्रों को बढ़ावा देने के लिए

(3) To translate British laws into Indian languages / ब्रिटिश कानूनों का भारतीय भाषाओं में अनुवाद करने के लिए

(4) To suppress criticism of British policies in Indian-language newspapers / भारतीय भाषाओं के समाचार पत्रों में ब्रिटिश नीतियों की आलोचना को दबाने के लिए ✔

Q.51 Which of the following taxes was earlier considered a 'paper tax' due to its low revenue yield?

निम्नलिखित में से किस कर को कम राजस्व प्राप्ति के कारण पहले 'कागजी कर' माना जाता था?

(1) Income tax / आयकर

(2) Excise duty / उत्पाद शुल्क

(3) Corporation tax / निगम कर

(4) Wealth tax / संपत्ति कर ✔

Q.52 Which situation is most likely to produce strong winds between two locations?

किस स्थिति में दो स्थानों के बीच तेज हवाएँ उत्पन्न होने की सबसे अधिक संभावना है?

(1) Uniform humidity levels / एकसमान आर्द्रता स्तर

(2) Identical elevation conditions / समान ऊँचाई की स्थितियाँ

(3) Equal temperatures in both areas / दोनों क्षेत्रों में समान तापमान

(4) A large pressure difference over a short distance / कम दूरी पर अधिक दाब अंतर ✔

Q.53 Which of the following social practices was banned by the Governor-General of India, Lord William Bentinck, in 1829?

भारत के गवर्नर-जनरल लॉर्ड विलियम बेंटिक द्वारा 1829 में निम्नलिखित में से किस सामाजिक प्रथा पर प्रतिबंध लगाया गया था?

(1) Widow Remarriage / विधवा पुनर्विवाह

(2) Child marriage / बाल विवाह

(3) Sati / सती ✔

(4) Female infanticide / कन्या भ्रूण हत्या

Q.54 Which part of the Northern Plains is made of newer, fertile alluvium and is renewed annually?

उत्तरी मैदानों का कौन-सा भाग नई, उपजाऊ जलोढ़ मिट्टी से बना है और प्रतिवर्ष नवीनीकृत होता है?

(1) Bhabar / भाबर

(2) Bhangar / बांगर

(3) Khadar / खादर ✔

(4) Terai / तराई

Q.55 What is the main objective of trade liberalisation in an open economy?

एक खुली अर्थव्यवस्था में व्यापार उदारीकरण का मुख्य उद्देश्य क्या है?

(1) To promote domestic industries by imposing tariffs / प्रशुल्क लगाकर घरेलू उद्योगों को बढ़ावा देना

(2) To reduce barriers in international trade / अंतर्राष्ट्रीय व्यापार में बाधाओं को कम करना ✔

(3) To increase government revenue / सरकारी राजस्व में वृद्धि करना

(4) To restrict foreign investment / विदेशी निवेश को प्रतिबंधित करना

Q.56 Who is known as the 'Grand Old Man of India'?

'भारत के वयोवृद्ध पुरुष (ग्रैंड ओल्ड मैन ऑफ इंडिया)' के रूप में किसे जाना जाता है?

(1) Gopal Krishna Gokhale / गोपाल कृष्ण गोखले

(2) Surendranath Banerjee / सुरेंद्रनाथ बनर्जी

(3) **Dadabhai Naoroji / दादाभाई नौरोजी ✔**

(4) W.C. Bonnerjee / डब्ल्यू.सी. बनर्जी

Q.57 The Indian Councils Act of 1909 is popularly known as the Morley-Minto Reforms. Which principle was introduced by this Act?

भारतीय परिषद अधिनियम, 1909 को लोकप्रिय रूप से मॉर्ले-मिंटो सुधार के नाम से जाना जाता है।
इस अधिनियम द्वारा कौन-सा सिद्धांत लागू किया गया था?

(1) Establishment of an All India Federation / अखिल भारतीय संघ की स्थापना

(2) Provincial Autonomy / प्रांतीय स्वायत्तता

(3) **Introduction of Separate Electorates for Muslims / मुसलमानों के लिए पृथक निर्वाचक मंडल की शुरुआत ✔**

(4) Diarchy (Double Rule) at the Provincial level / प्रांतीय स्तर पर द्वैध शासन (दोहरा शासन)

Q.58 The Primary Sector of employment involves activities based on which of the following?

रोजगार का प्राथमिक क्षेत्रक निम्नलिखित में से किस पर आधारित गतिविधियों से संबंधित है?

(1) Banking, insurance, and communication services / बैंकिंग, बीमा और संचार सेवाएँ

(2) **Extraction and use of natural resources from the earth / पृथ्वी से प्राकृतिक संसाधनों का निष्कर्षण और उपयोग ✔**

(3) Manufacturing finished goods from raw materials / कच्चे माल से तैयार माल का विनिर्माण

(4) Processing information and software development / सूचना प्रसंस्करण और सॉफ्टवेयर विकास

Q.59 If any other country becomes a part of India, the Government of India may specify the persons who shall become citizens of India. This method of acquiring citizenship is called _____.

यदि कोई अन्य देश भारत का हिस्सा बन जाता है, तो भारत सरकार उन व्यक्तियों को निर्दिष्ट कर सकती है जो भारत के नागरिक बन जाएंगे।
नागरिकता प्राप्त करने की इस विधि को _____ कहा जाता है।

(1) **Citizenship by incorporation of territory / क्षेत्र समावेशन द्वारा नागरिकता ✔**

(2) Citizenship by domicile / अधिवास द्वारा नागरिकता

(3) Citizenship by descent / अवजनन द्वारा नागरिकता

(4) Citizenship by naturalisation / नागरिकीकरण द्वारा नागरिकता

Q.60 Which of the following statements about GDP growth in India during 1980–91 and 2007–12 is correct?

1980–91 और 2007–12 के दौरान भारत में GDP वृद्धि के बारे में निम्नलिखित में से कौन-सा कथन सही है?

(1) GDP growth was lower during 2007-12 than during 1980-91 / 1980-91 की तुलना में 2007-12 के दौरान GDP वृद्धि कम थी

(2) **GDP growth increased from 5.6% in 1980–91 to 8.2% in 2007–12 / GDP वृद्धि 1980–91 में 5.6% से बढ़कर 2007–12 में 8.2% हो गई ✔**

(3) There was no significant change in GDP growth between these periods / इन अवधियों के बीच GDP वृद्धि में कोई महत्वपूर्ण परिवर्तन नहीं हुआ

(4) GDP growth was stable at 7% in both periods / दोनों अवधियों में GDP वृद्धि 7% पर स्थिर रही

Q.61 As per the National Institutional Ranking Framework (NIRF) 2025 released by the Ministry of Education, which institution has retained the 1st rank in the Overall category for the seventh consecutive year?

शिक्षा मंत्रालय द्वारा जारी राष्ट्रीय संस्थागत रैंकिंग फ्रेमवर्क (NIRF) 2025 के अनुसार, किस संस्थान ने लगातार सातवें वर्ष समग्र श्रेणी में पहली रैंक बरकरार रखी है?

(1) Indian Institute of Technology Bombay / भारतीय प्रौद्योगिकी संस्थान बॉम्बे

(2) Indian Institute of Technology Roorkee / भारतीय प्रौद्योगिकी संस्थान रुड़की

(3) Indian Institute of Technology Delhi / भारतीय प्रौद्योगिकी संस्थान दिल्ली

(4) Indian Institute of Technology Madras / भारतीय प्रौद्योगिकी संस्थान मद्रास ✔

Q.62 Which of the following countries hosted the 2025 Nobel Prize award ceremonies for Physics, Chemistry, and Medicine?

निम्नलिखित में से किस देश ने भौतिकी, रसायन विज्ञान और चिकित्सा के लिए 2025 के नोबेल पुरस्कार समारोहों की मेजबानी की?

(1) Norway / नॉर्वे

(2) Finland / फिनलैंड

(3) Denmark / डेनमार्क

(4) Sweden / स्वीडन ✔

Q.63 The Repealing and Amending Act, 2025, seeks to clean up the statute book by repealing outdated and redundant laws enacted between 1886 and 2023. How many such Acts have been removed under this legislation?

निरसन और संशोधन अधिनियम, 2025 का उद्देश्य 1886 और 2023 के बीच अधिनियमित पुराने और अनावश्यक कानूनों को निरस्त करके विधि-पुस्तिका को स्वच्छ करना है। इस विधान के अंतर्गत ऐसे कितने अधिनियम हटाए गए हैं?

(1) 71 ✔

(2) 51

(3) 60

(4) 93

Q.64 Identify the machine that measures electric current in a circuit.

उस यंत्र की पहचान करें जो किसी परिपथ में विद्युत धारा को मापता है।

(1) Ammeter / ऐमीटर ✔

(2) Voltmeter / वोल्टमीटर

(3) Resistor / प्रतिरोधक

(4) Conductor / चालक

Q.65 Sangam Literature is a collective term for ancient Tamil writings that primarily flourished under the patronage of which ruling dynasties?

संगम साहित्य प्राचीन तमिल रचनाओं के लिए एक सामूहिक शब्द है, जो मुख्य रूप से किन शासक राजवंशों के संरक्षण में फला-फूला?

(1) The Pallavas and the Chalukyas / पल्लव और चालुक्य

(2) The Cheras, Cholas, and Pandyas / चेर, चोल और पांड्य ✔

(3) The Mughals and the Delhi Sultans / मुगल और दिल्ली सुल्तान

(4) The Satavahanas and the Guptas / सातवाहन और गुप्त

Q.66 In early February 2026, which technology did DRDO successfully demonstrate to enhance the performance of India's long-range air-to-air missiles?

फरवरी 2026 की शुरुआत में, DRDO ने भारत की लंबी दूरी की हवा से हवा में मार करने वाली मिसाइलों के प्रदर्शन को बढ़ाने के लिए किस प्रौद्योगिकी का सफलतापूर्वक प्रदर्शन किया?

(1) Air-independent submarine propulsion / वायु-स्वतंत्र पनडुब्बी प्रणोदन

(2) Liquid Bi-propellant rocket motor / द्रव द्वि-प्रणोदक रॉकेट मोटर

(3) Hypersonic glide vehicle system / हाइपरसोनिक ग्लाइड व्हीकल प्रणाली

(4) Solid Fuel Ducted Ramjet / सॉलिड फ्यूल डक्टेड रैमजेट ✔

Q.67 According to Mendel's Law of Inheritance, when two contrasting alleles are present in an organism, only one is expressed. This expressed allele is called _____.

मेंडल के वंशागति के नियम के अनुसार, जब किसी जीव में दो विपरीत युग्मविकल्पी (एलील) उपस्थित होते हैं, तो केवल एक ही अभिव्यक्त होता है। इस अभिव्यक्त युग्मविकल्पी को _____ कहा जाता है।

(1) Dominant Allele / प्रभावी युग्मविकल्पी ✔

(2) Mutated Allele / उत्परिवर्तित युग्मविकल्पी

(3) Homozygous Allele / समयुग्मजी युग्मविकल्पी

(4) Recessive Allele / अप्रभावी युग्मविकल्पी

Q.68 Which technology was handed over by DRDO under the Technology Development Fund (TDF) scheme in 2025 specifically for use in Fast Interceptor Craft?

2025 में प्रौद्योगिकी विकास निधि (TDF) योजना के अंतर्गत DRDO द्वारा विशेष रूप से फास्ट इंटरसेप्टर क्राफ्ट में उपयोग के लिए कौन-सी प्रौद्योगिकी सौंपी गई?

(1) Novel lithium precursor recovery process / नवीन लिथियम प्रीकर्सर पुनर्प्राप्ति प्रक्रिया

(2) High-voltage power supply / उच्च-वोल्टेज विद्युत आपूर्ति

(3) Advanced VLF loop aerials / उन्नत VLF लूप एरियल

(4) Indigenous waterjet propulsion system / स्वदेशी वॉटरजेट प्रणोदन प्रणाली ✔

Q.69 Where was the ICGS ATAL Fast Patrol Vessel launched on 29 July 2025?

29 जुलाई 2025 को ICGS अटल फास्ट पेट्रोल वेसल का जलावतरण कहाँ किया गया था?

(1) Paradip, Odisha / पारादीप, ओडिशा

(2) Kochi, Kerala / कोच्चि, केरल

(3) Vasco-da-Gama, Goa / वास्को-डा-गामा, गोवा ✔

(4) Chennai, Tamil Nadu / चेन्नई, तमिलनाडु

Q.70 In 2025, which actor was originally part of the cast for Dhurandhar, but moved on to shoot for the mythological epic Mahakali?

2025 में, कौन-सा अभिनेता मूल रूप से धुरंधर के कलाकारों में शामिल था, लेकिन पौराणिक महाकाव्य महाकाली की शूटिंग के लिए चला गया?

(1) Abhishek Banerjee / अभिषेक बनर्जी

(2) Ahaan Panday / अहान पांडे

(3) Farhan Akhtar / फरहान अख्तर

(4) Akshaye Khanna / अक्षय खन्ना ✔

Q.71 In the November 2025 Bihar Assembly election, who achieved a landslide victory, winning 202 of 243 seats?

नवंबर 2025 के बिहार विधानसभा चुनाव में, 243 में से 202 सीटें जीतकर किसने प्रचंड जीत हासिल की?

(1) National Democratic Alliance (NDA) / राष्ट्रीय जनतांत्रिक गठबंधन (NDA) ✔

(2) MVA - Maha Vikas Aghadi / MVA - महा विकास अघाड़ी

(3) INDIA Alliance (Indian National Developmental Inclusive Alliance) / INDIA गठबंधन (इंडियन नेशनल डेवलपमेंटल इन्क्लूसिव अलायंस)

(4) UPA - United Progressive Alliance / UPA - संयुक्त प्रगतिशील गठबंधन

Q.72 Census 2027 represents a paradigmatic shift with several innovations, NOT including which of the following?

जनगणना 2027 कई नवाचारों के साथ एक प्रतिमानात्मक बदलाव का प्रतिनिधित्व करती है, इनमें निम्नलिखित में से कौन-सा शामिल नहीं है?

(1) First-time use of Mobile Apps for data collection / डेटा संग्रह के लिए पहली बार मोबाइल ऐप का उपयोग

(2) Online self-enumeration for the public / जनता के लिए ऑनलाइन स्व-गणना

(3) Linking census data with Aadhaar / जनगणना डेटा को आधार से जोड़ना ✔

(4) Census Monitoring & Management Portal / जनगणना निगरानी एवं प्रबंधन पोर्टल

Q.73 Vinod Gangadhar Lele is a famous _____ player.

विनोद गंगाधर लेले एक प्रसिद्ध _____ वादक हैं।

(1) Violin / वायलिन

(2) Tabla / तबला ✔

(3) Sarod / सरोद

(4) Sitar / सितार

Q.74 Which of the following economic bodies has revised its FY 2025–26 GDP forecast upward from 6.5% to 6.8% in late 2025?

निम्नलिखित में से किस आर्थिक निकाय ने 2025 के अंत में वित्त वर्ष 2025–26 के लिए अपने GDP पूर्वानुमान को 6.5% से बढ़ाकर 6.8% कर दिया?

(1) Reserve Bank of India (RBI) / भारतीय रिज़र्व बैंक (RBI) ✔

(2) Central Vigilance Commission / केंद्रीय सतर्कता आयोग

(3) Security Exchange Board of India (SEBI) / भारतीय प्रतिभूति और विनिमय बोर्ड (SEBI)

(4) Ministry of Corporate and Affairs (MoCA) / कॉर्पोरेट कार्य मंत्रालय (MoCA)

Q.75 In October–November 2025, an important economic cooperation summit of Asia- Pacific leaders was held in which city?

अक्टूबर–नवंबर 2025 में, एशिया-प्रशांत नेताओं का एक महत्वपूर्ण आर्थिक सहयोग शिखर सम्मेलन किस शहर में आयोजित किया गया था?

(1) Gyeongju / ग्योंगजू ✔

(2) Tokyo / टोक्यो

(3) Dubai / दुबई

(4) Seoul / सियोल

Q.76 What is the process of a gas changing into a liquid called?

किसी गैस के द्रव में परिवर्तित होने की प्रक्रिया को क्या कहा जाता है?

(1) Condensation / संघनन ✔

(2) Melting / गलन

(3) Sublimation / ऊर्ध्वपातन

(4) Evaporation / वाष्पीकरण

Q.77 Which debut memoir won the Shakti Bhatt Prize in 2025?

किस पहले संस्मरण (डेब्यू मेमॉयर) ने 2025 में शक्ति भट्ट पुरस्कार जीता?

(1) Almost Brown: A Memoir by Charlotte Gill / शार्लोट गिल द्वारा ऑलमोस्ट ब्राउन: ए मेमॉयर

(2) Smoke and Ashes by Amitav Ghosh / अमिताव घोष द्वारा स्मोक एंड ऐशेज़

(3) The Lucky Ones by Zara Chowdhary / ज़ारा चौधरी द्वारा द लकी वन्स ✔

(4) The Loneliness of Sonia and Sunny by Kiran Desai / किरण देसाई द्वारा द लोनलीनेस ऑफ सोनिया एंड सनी

Q.78 To ensure systemic and organized disaster response, India has established a robust institutional framework. It does not include:

व्यवस्थित और संगठित आपदा प्रतिक्रिया सुनिश्चित करने के लिए, भारत ने एक सुदृढ़ संस्थागत ढाँचा स्थापित किया है। इसमें शामिल नहीं है:

(1) National Security Council (NSC) / राष्ट्रीय सुरक्षा परिषद (NSC) ✔

(2) District Disaster Management Authorities (DDMAs) only / केवल जिला आपदा प्रबंधन प्राधिकरण (DDMAs)

(3) National Disaster Management Authority (NDMA) only / केवल राष्ट्रीय आपदा प्रबंधन प्राधिकरण (NDMA)

(4) State Disaster Management Authorities (SDMAs) only / केवल राज्य आपदा प्रबंधन प्राधिकरण (SDMAs)

Q.79 As per the 10th Sustainable Development Report, what is the rank of India among 167 countries?

10वीं सतत विकास रिपोर्ट के अनुसार, 167 देशों में भारत की रैंक क्या है?

(1) 86th Rank / 86वीं रैंक

(2) 107th Rank / 107वीं रैंक

(3) 99th Rank / 99वीं रैंक ✔

(4) 90th Rank / 90वीं रैंक

Q.80 Who established the four Mathas (monastic centers) in India?

भारत में चार मठों (मठवासी केंद्रों) की स्थापना किसने की?

(1) Adi Shankaracharya / आदि शंकराचार्य ✔

(2) Ramanuja / रामानुज

(3) Nirmal Shankaracharya / निर्मल शंकराचार्य

(4) Basavanagudi / बसवनगुडी

Arithmetical and Numerical Ability

Q.81 The difference between the compound interest (when interest is compounded annually) and the simple interest if ₹39,600 is deposited at 8% rate of interest per annum for 2 years is:

यदि ₹39,600 को 8% वार्षिक ब्याज दर पर 2 वर्ष के लिए जमा किया जाता है, तो चक्रवृद्धि ब्याज (जब ब्याज वार्षिक रूप से संयोजित होता है) और साधारण ब्याज के बीच का अंतर है:

(1) ₹253.44 ✔

(2) ₹260.20

(3) ₹262.65

(4) ₹250.36

Q.82 What is the sum of the first 30 natural numbers?

प्रथम 30 प्राकृत संख्याओं का योग क्या है?

(1) 421

(2) 436

(3) 485

(4) 465 ✔

Q.83 On an online website, a product's negative rating caused its sales to drop. The ratio of the decrease in sales to the original sales is 4:5. What is the percentage decrease?

एक ऑनलाइन वेबसाइट पर, किसी उत्पाद की नकारात्मक रेटिंग के कारण उसकी बिक्री में गिरावट आई। बिक्री में कमी और मूल बिक्री का अनुपात 4:5 है। प्रतिशत कमी कितनी है?

(1) 20%

(2) 90%

(3) 40%

(4) 80% ✔

Q.84 Two traffic lights change their lights at regular intervals. One light changes every 45 seconds, and the other changes every 60 seconds. If they both change to green at the same time at 8:10 AM, after how many seconds will they both change to green at the same time again?

दो ट्रैफिक लाइटें नियमित अंतराल पर अपनी लाइटें बदलती हैं। एक लाइट प्रत्येक 45 सेकंड में बदलती है, और दूसरी प्रत्येक 60 सेकंड में बदलती है। यदि दोनों सुबह 8:10 बजे एक साथ हरी हो जाती हैं, तो कितने सेकंड बाद वे दोनों फिर से एक साथ हरी होंगी?

(1) 120 seconds / 120 सेकंड

(2) 180 seconds / 180 सेकंड ✔

(3) 60 seconds / 60 सेकंड

(4) 105 seconds / 105 सेकंड

Q.85 A merchant has 2442 kg of sugar. He sells a part of it at 24% profit and the remaining quantity at 35% profit. If his overall gain is 26%, how much sugar (in kg) was sold at 35% profit?

एक व्यापारी के पास 2442 kg चीनी है। वह इसका एक भाग 24% लाभ पर और शेष मात्रा 35% लाभ पर बेचता है। यदि उसका कुल लाभ 26% है, तो 35% लाभ पर कितनी चीनी (kg में)
बेची गई थी?

(1) 452

(2) 450

(3) 439

(4) 444 ✔

Q.86 The simplified value of $\sqrt{50} + \sqrt{18} + \sqrt{8}$ is:

$\sqrt{50} + \sqrt{18} + \sqrt{8}$ का सरलीकृत मान है:

(1) $10\sqrt{2}$ ✔

(2) $9\sqrt{2}$

(3) $8\sqrt{2}$

(4) $12\sqrt{2}$

Q.87 If $81^{0.11} = x$, $81^{0.6} = y$ and $x^z = y^6$, then the value of z is close to:

यदि $81^{0.11} = x$, $81^{0.6} = y$ और $x^z = y^6$ है, तो z का मान लगभग है:

(1) 33.05

(2) 33.74

(3) **32.73** ✔

(4) 31.79

Q.88 21 litres of milk are drawn from a vessel full of milk and is then filled with water. This operation is performed two more times. The ratio of the quantity of milk now left in the vessel to that of the water is 64 : 936. What is the volume (in litres) of the vessel?

दूध से भरे एक बर्तन में से 21 लीटर दूध निकाला जाता है और फिर उसे पानी से भर दिया जाता है। यह प्रक्रिया दो बार और की जाती है। अब बर्तन में बचे दूध की मात्रा और पानी की मात्रा का अनुपात 64 : 936 है। बर्तन का आयतन (लीटर में) कितना है?

(1) 34

(2) 37

(3) **35** ✔

(4) 33

Q.89 Evaluate $(17 + 5) \div (44 \div 4) \times 6 + 3^3 - 4^2$.

$(17 + 5) \div (44 \div 4) \times 6 + 3^3 - 4^2$ का मान ज्ञात कीजिए।

(1) 5

(2) 39

(3) **23** ✔

(4) 28

Q.90 The table below shows the quarterly expenses (in thousands of ₹) for four departments of a company in the year 2023. By what percentage did the expenses of the Operations department increase from Quarter 1 (Q1) to Quarter 3 (Q3)? (Rounded off to two decimal places)

Department Q1 Q2 Q3 Q4 Human Resources ₹45 ₹52 ₹48 ₹55 Marketing ₹80 ₹95 ₹110 ₹105 Research & Dev ₹120 ₹115 ₹130 ₹125 Operations ₹150 ₹145 ₹160 ₹155

नीचे दी गई तालिका वर्ष 2023 में एक कंपनी के चार विभागों के तिमाही व्यय (हजार ₹ में) को दर्शाती है। संचालन विभाग के व्यय में तिमाही 1 (Q1) से तिमाही 3 (Q3) तक कितने प्रतिशत की वृद्धि हुई? (दो दशमलव स्थानों तक पूर्णांकित)

विभाग Q1 Q2 Q3 Q4 मानव संसाधन ₹45 ₹52 ₹48 ₹55 विपणन ₹80 ₹95 ₹110 ₹105 अनुसंधान एवं विकास ₹120 ₹115 ₹130 ₹125 संचालन ₹150 ₹145 ₹160 ₹155

(1) 8.35%

(2) 5.56%

(3) 7.33%

(4) **6.67%** ✔

Q.91 In a test, B got 52 marks while A got 80 marks, out of 100 maximum marks. What percentage of A's marks was B's marks?

एक परीक्षा में, अधिकतम 100 अंकों में से B को 52 अंक मिले जबकि A को 80 अंक मिले। B के अंक, A के अंकों का कितना प्रतिशत थे?

(1) 88.89%

(2) 85%

(3) 153.85%

(4) **65%** ✔

Q.92 The following graph illustrates the Production of a Factory (Units) from January to May.

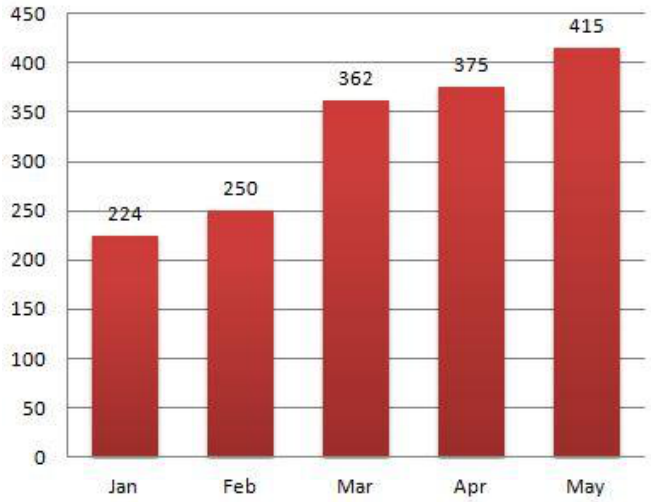

By how much did production (in units) increase from Feb to May?

निम्नलिखित ग्राफ जनवरी से मई तक एक कारखाने के उत्पादन (इकाइयाँ) को दर्शाता है।

फरवरी से मई तक उत्पादन (इकाइयों में) में कितनी वृद्धि हुई?

(1) 170

(2) 160

(3) 175

(4) 165 ✔

Q.93 The difference between the compound interest (when interest is compounded annually) and the simple interest if ₹80,100 is deposited at 5% rate of interest per annum for 2 years is:

यदि ₹80,100 को 5% वार्षिक ब्याज दर पर 2 वर्ष के लिए जमा किया जाता है, तो चक्रवृद्धि ब्याज (जब ब्याज वार्षिक रूप से संयोजित होता है) और साधारण ब्याज के बीच का अंतर है:

(1) ₹190.35

(2) ₹200.25 ✔

(3) ₹203.75

(4) ₹194.80

Q.94 What is the vulgar fraction of the mixed recurring decimal $2.52\overline{87}$?

मिश्रित आवर्ती दशमलव $2.52\overline{87}$ की साधारण भिन्न क्या है?

(1) 1669/990

(2) 3338/660

(3) 3338/990

(4) 1669/660 ✔

Q.95 How many prime numbers are there between 1 and 100?

1 और 100 के बीच कितनी अभाज्य संख्याएँ हैं?

(1) 30

(2) 20

(3) 50

(4) 25 ✔

QuickSarkari.com | WhatsApp Channel | Telegram: t.me/quick_sarkari

Q.96 What is the HCF of 24 and 36?

24 और 36 का HCF क्या है?

(1) 1

(2) 6

(3) 3

(4) 12 ✔

Q.97 If 26 kg of Rice priced at ₹55 per kg mixed with 24 kg of Rice priced at ₹58 per kg. What is the average price of whole mixture?

यदि ₹55 प्रति kg मूल्य वाले 26 kg चावल को ₹58 प्रति kg मूल्य वाले 24 kg चावल के साथ मिलाया जाता है।
पूरे मिश्रण का औसत मूल्य क्या है?

(1) ₹55.82 per kg / ₹55.82 प्रति kg

(2) ₹56.08 per kg / ₹56.08 प्रति kg

(3) ₹56.92 per kg / ₹56.92 प्रति kg

(4) ₹56.44 per kg / ₹56.44 प्रति kg ✔

Q.98 Find the simple interest (in ₹) on ₹3000 as a sum borrowed at 5% per year rate of interest for 4 years.

5% वार्षिक ब्याज दर पर 4 वर्ष के लिए उधार ली गई ₹3000 की राशि पर साधारण ब्याज (₹ में) ज्ञात कीजिए।

(1) 560

(2) 640

(3) 540

(4) 600 ✔

Q.99 A company has two divisions, A and B. Division A employs 24 people with an average salary of ₹28000, while Division B employs 26 people with an average salary of ₹32000. What is the overall average salary of all employees in the company?

एक कंपनी के दो प्रभाग A और B हैं। प्रभाग A में 24 कर्मचारी हैं जिनका औसत वेतन ₹28000 है, जबकि प्रभाग B में 26 कर्मचारी हैं जिनका औसत वेतन ₹32000 है। कंपनी के सभी कर्मचारियों का समग्र औसत वेतन क्या है?

(1) ₹31860

(2) ₹30080 ✔

(3) ₹31020

(4) ₹30640

Q.100 Simplify the following expression.

$(5^3 + (1/2)^{-2}) \div 3^2$

निम्नलिखित व्यंजक को सरल कीजिए।

$(5^3 + (1/2)^{-2}) \div 3^2$

(1) 43/3 ✔

(2) 24/7

(3) 15.56

(4) 0

Q.101 Divide ₹23,800 into three parts in such a way that half of the first part, one-fourth of the second part and one-eighth of the third part are equal. What is the value (in ₹) of the first part?

₹23,800 को तीन भागों में इस प्रकार विभाजित कीजिए कि पहले भाग का आधा, दूसरे भाग का एक-चौथाई और तीसरे भाग का आठवाँ भाग बराबर हों। पहले भाग का मान (₹ में) क्या है?

(1) 3,700

(2) 3,400 ✔

(3) 3,500

(4) 3,100

Q.102 A and B complete a work in 3 days. If A alone can do it in 6 days, then B alone can do it in_____(days).

A और B एक कार्य को 3 दिनों में पूरा करते हैं। यदि A अकेले इसे 6 दिनों में कर सकता है, तो B अकेले इसे _____(दिनों) में कर सकता है।

(1) 8

(2) 6 ✔

(3) 7

(4) 5

Q.103 A solid sphere of radius 6 cm is melted and recast into small spherical balls of radius 2 cm each. How many small balls will be formed?

6 cm त्रिज्या वाले एक ठोस गोले को पिघलाकर 2 cm त्रिज्या वाली छोटी गोलाकार गेंदों में ढाला जाता है। कितनी छोटी गेंदें बनेंगी?

(1) 9

(2) 3

(3) 81

(4) 27 ✔

Q.104 A cylinder of radius 6 cm and height 15 cm is melted and recast into small cones each of radius 3 cm and height 5 cm. How many cones are obtained?

6 cm त्रिज्या और 15 cm ऊँचाई वाले एक बेलन को पिघलाकर 3 cm त्रिज्या और 5 cm ऊँचाई वाले छोटे शंकुओं में ढाला जाता है। कितने शंकु प्राप्त होते हैं?

(1) 30

(2) 34

(3) 36 ✔

(4) 32

Q.105 The list price of a television set is ₹13,000. It is sold to a retailer after two successive discounts of 45% and 8%. The retailer wants to earn a profit of 50% on his cost price after allowing a 25% discount (on its new list price) to the customer. At what price should he list the television set?

एक टेलीविजन सेट का सूची मूल्य ₹13,000 है। इसे 45% और 8% की दो क्रमिक छूटों के बाद एक खुदरा विक्रेता को बेचा जाता है। खुदरा विक्रेता ग्राहक को (इसके नए सूची मूल्य पर) 25% की छूट देने के बाद अपने क्रय मूल्य पर 50% लाभ अर्जित करना चाहता है।
उसे टेलीविजन सेट का सूची मूल्य कितना रखना चाहिए?

(1) ₹13,156 ✔

(2) ₹13,280

(3) ₹13,174

(4) ₹13,298

Q.106 Mr. X drives a car at a speed of 54 km/h. How much time will he take to cover a distance of 1620 meters?

श्री X 54 km/h की चाल से कार चलाते हैं। 1620 मीटर की दूरी तय करने में उन्हें कितना समय लगेगा?

(1) 84 seconds / 84 सेकंड

(2) 108 seconds / 108 सेकंड ✔

(3) 98 seconds / 98 सेकंड

(4) 78 seconds / 78 सेकंड

Q.107 What is the mean proportional (geometric mean) between 196 and 576?

196 और 576 के बीच मध्यानुपाती (गुणोत्तर माध्य) क्या है?

(1) 312

(2) 364

(3) 386

(4) 336 ✔

Q.108 Shekhar purchased a gas stove at 7/10 of the marked price and sold it at 9% more than its marked price. Find his gain percentage.

शेखर ने एक गैस स्टोव अंकित मूल्य के 7/10 पर खरीदा और इसे इसके अंकित मूल्य से 9% अधिक पर बेच दिया। उसका लाभ प्रतिशत ज्ञात कीजिए।

(1) 36 2/7%

(2) 55 5/7% ✔

(3) 59 3/7%

(4) 45 1/7%

Q.109 A small cube of side 4 cm is cut out from a corner of a large wooden cuboid (imagine a cuboid with a missing cube at one corner). The dimensions of the cuboid are 15 cm by 12 cm by 10 cm. Find the total surface area of the remaining solid.

लकड़ी के एक बड़े घनाभ के एक कोने से 4 cm भुजा वाला एक छोटा घन काटकर निकाला जाता है (एक ऐसे घनाभ की कल्पना करें जिसके एक कोने पर एक घन नहीं है)। घनाभ की विमाएँ 15 cm, 12 cm और 10 cm हैं। शेष ठोस का कुल पृष्ठीय क्षेत्रफल ज्ञात कीजिए।

(1) 800 cm^2

(2) 750 cm^2

(3) 900 cm^2 ✔

(4) 850 cm^2

Q.110 A shopkeeper bought six identical mobile phones for a total sum of ₹12,000, and sold two of them for a total price of ₹12,000. Find the percentage of gain made by the shopkeeper in the sale of the two phones.

एक दुकानदार ने छह एकसमान मोबाइल फोन कुल ₹12,000 में खरीदे, और उनमें से दो को कुल ₹12,000 के मूल्य पर बेच दिया। दो फोनों की बिक्री में दुकानदार द्वारा अर्जित लाभ का प्रतिशत ज्ञात कीजिए।

(1) 200% ✔

(2) 202%

(3) 201%

(4) 197%

Q.111 A cone has a radius of 3 cm and a height of 9 cm. Its volume is:

एक शंकु की त्रिज्या 3 cm और ऊँचाई 9 cm है। इसका आयतन है:

(1) 22π cm^3

(2) 81π cm^3

(3) **27π cm^3** ✔

(4) 54π cm^3

Q.112 Three numbers are in the ratio 2:3:5. The numbers are increased by 10%, 20%, and 30%, respectively. Find the new ratio.

तीन संख्याएँ 2:3:5 के अनुपात में हैं। संख्याओं में क्रमशः 10%, 20% और 30% की वृद्धि की जाती है। नया अनुपात ज्ञात कीजिए।

(1) 3:7:17

(2) **22:36:65** ✔

(3) 11:27:37

(4) 1:2:3

Q.113 Two people, A and B, can complete a job in 12 days and 24 days, respectively. If they work together, how many days will it take to finish the job?

दो व्यक्ति, A और B, एक कार्य को क्रमशः 12 दिनों और 24 दिनों में पूरा कर सकते हैं। यदि वे एक साथ कार्य करें, तो कार्य को पूरा करने में कितने दिन लगेंगे?

(1) 10 days / 10 दिन

(2) 4 days / 4 दिन

(3) **8 days / 8 दिन** ✔

(4) 6 days / 6 दिन

Q.114 A right circular cone has a slant height of 17 cm and a height of 15 cm. Find the volume of the cone. (Use π=3.14)

एक लंब वृत्तीय शंकु की तिर्यक ऊँचाई 17 cm और ऊँचाई 15 cm है। शंकु का आयतन ज्ञात कीजिए। (π=3.14 का प्रयोग करें)

(1) 1058 cm^3

(2) 1121.4 cm^3

(3) 1000 cm^3

(4) **1004.8 cm^3** ✔

Q.115 Two numbers are in the ratio 5 : 9. If five is subtracted from the first number and three is added to the second number, the ratio becomes 1 : 2. Find the sum of the two numbers.

दो संख्याएँ 5 : 9 के अनुपात में हैं। यदि पहली संख्या में से पाँच घटाया जाए और दूसरी संख्या में तीन जोड़ा जाए, तो अनुपात 1 : 2 हो जाता है। दोनों संख्याओं का योग ज्ञात कीजिए।

(1) **182** ✔

(2) 169

(3) 165

(4) 52

Q.116 A rectangular stage 75.88 m long and 67.48 m broad has to be paved exactly with square tiles all of the same size. Find the least number of square tiles required.

75.88 m लंबे और 67.48 m चौड़े एक आयताकार मंच को एक ही आकार की वर्गाकार टाइलों से पूरी तरह ढकना है। आवश्यक वर्गाकार टाइलों की न्यूनतम संख्या ज्ञात कीजिए।

(1) 65,311 ✔

(2) 60,750

(3) 66,780

(4) 62,715

Q.117 A regular hexagon is inscribed in a circle with a radius of 8 cm. Find the area (in cm^2) of the hexagon.

8 cm त्रिज्या वाले एक वृत्त के अंतर्गत एक सम षट्भुज बना है। षट्भुज का क्षेत्रफल (cm^2 में) ज्ञात कीजिए।

(1) $48\sqrt{3}$

(2) $72\sqrt{3}$

(3) $96\sqrt{3}$ ✔

(4) $108\sqrt{3}$

Q.118 A train travelling at a uniform speed crosses a platform of length 250 meters in 30 seconds and passes a telegraph pole in 10 seconds. Find the length of the train.

एकसमान चाल से चल रही एक रेलगाड़ी 250 मीटर लंबे प्लेटफॉर्म को 30 सेकंड में पार करती है और एक टेलीग्राफ खंभे को 10 सेकंड में पार करती है। रेलगाड़ी की लंबाई ज्ञात कीजिए।

(1) 140 meters / 140 मीटर

(2) 125 meters / 125 मीटर ✔

(3) 130 meters / 130 मीटर

(4) 135 meters / 135 मीटर

Q.119 A closed box's external measurements are 32 cm, 28 cm, and 25 cm. What is the volume of wood used to create the box if it is built of wood that is one centimetre thick?

एक बंद डिब्बे की बाहरी माप 32 cm, 28 cm और 25 cm है। यदि डिब्बा एक सेंटीमीटर मोटी लकड़ी से बना है, तो डिब्बा बनाने में प्रयुक्त लकड़ी का आयतन क्या है?

(1) 4470 cm^3

(2) **4460 cm^3** ✔

(3) 4450 cm^3

(4) 4440 cm^3

Q.120 An item has a marked price of ₹1,200 and is available at a 15.5% discount. Find the selling price of the item.

एक वस्तु का अंकित मूल्य ₹1,200 है और यह 15.5% की छूट पर उपलब्ध है। वस्तु का विक्रय मूल्य ज्ञात कीजिए।

(1) ₹1,100

(2) ₹1,014 ✔

(3) ₹1,000

(4) ₹1,088

English Language and Comprehension

Q.121 Choose the most appropriate option to complete the sentence.
To protect the environment, many people now _____ reusable bags.

(1) melt
(2) **use ✔**
(3) exist
(4) float

Q.122 Choose the option that best replaces the underlined text.
The young poet gained fame for his short and witty sayings that carried deep meanings.

(1) maxims
(2) **epigrams ✔**
(3) quotations
(4) proverbs

Q.123 In the following question, you are required to fill in the blank by choosing the word that best completes the sentence.
The teacher's explanation of the lesson was very _____, so all the students understood it easily.

(1) abstruse
(2) arcane
(3) **lucid ✔**
(4) opaque

Q.124 In a situation where a regular, repeating path is followed by the Earth as it moves around the Sun, which one-word term correctly expresses this path?

(1) Revolution
(2) Axis
(3) **Orbit ✔**
(4) Rotation

Q.125 Select a specific word from the options below to replace the underlined group of words in the following sentence.
The philosopher argued for a system of government where the state holds total control over every aspect of public and private life.

(1) Autocracy
(2) Authoritarianism
(3) **Totalitarianism ✔**
(4) Despotism

Q.126 In the given question, a statement divided into different segments is given.
Rearrange all the segments to form a coherent statement.
From rare flowers (P) / The perfume was made (Q) / Found deep (R) / Of South America (S) / In the tropical forests (T)

(1) QPRTS ✔
(2) STRQP
(3) PTSQR
(4) PQRST

Q.127 Choose the option that best replaces the underlined text.
The spy was executed for betrayal of their country.

(1) conspiracy
(2) mutiny
(3) treason ✔
(4) sedition

Q.128 Fill in the blank with the most appropriate option.
The project was delayed _____ the workers went on strike for several weeks.

(1) because ✔
(2) though
(3) although
(4) unless

Q.129 Choose the option which uses the correct form of the future tense for the given sentence.
I will calling you as soon as I reach the station.

(1) I shall calling you as soon as I reach the station.
(2) I am call you as soon as I reach the station.
(3) I will call you as soon as I reach the station. ✔
(4) I will be call you as soon as I reach the station.

Q.130 Select the most appropriate option to fill in the blank.
Out of all the candidates, Priya answered the questions in the _____ manner.

(1) more quicker
(2) quicker
(3) quickest ✔
(4) most quicker

Q.131 Select a specific word from the options below to replace the underlined group of words in the following sentence.
The treaty was an agreement between two countries or parties to stop fighting.

(1) Alliance
(2) Contract
(3) Pact
(4) Armistice ✔

Q.132 Select the most appropriate option that can substitute the underlined segment in the given sentence.
The use of mild and pleasant words instead of harsh ones is a mark of politeness.

(1) understatement
(2) exaggeration
(3) euphemism ✔
(4) sarcasm

Q.133 Choose the most suitable option to complete the sentence meaningfully.
Her leadership style was not authoritarian but ____, valuing collaboration and input from every team member.

(1) weak
(2) flexible
(3) democratic ✔
(4) lenient

Q.134 Choose the most suitable option to complete the sentence meaningfully.
By the time we arrived at the cinema, the movie ____.

(1) starts
(2) started
(3) has started
(4) had started ✔

Q.135 In the given question, a statement divided into different segments is given.
Rearrange all the segments to form a coherent statement.
promotional materials for the (O)/ a market-leading graphic design company (P)/, specialising in producing (Q)/ diamond D-ZINE is (R)/ international film and music industries (S)

(1) SRPQO
(2) RSPQO
(3) RPQOS ✔
(4) OPQRS

Q.136 Choose the option that best replaces the underlined text.
The speech was so tedious and boring that it became a long talk on a single subject.

(1) monologue ✔
(2) dialogue
(3) conversation
(4) lecture

Quick Sarkari

Q.137 The parts labeled (OPQRS) form a single sentence when rearranged correctly.
Choose the correct sequence to make a meaningful sentence.
O: the first modern Olympic Games
P: were held
Q: in Athens,
R: in the year
S: 1896

(1) OPQRS ✔
(2) POQRS
(3) QPORS
(4) OPRSQ

Q.138 In the given question, a statement divided into different segments is given. The first segment (A) is fixed. Rearrange the other segments to form a coherent statement.
The poet's words (A)/ of those who had (P) / lost faith in beauty (Q) / touched the hearts (R) / and in love (S)

(1) PQRS
(2) RSQP
(3) RPQS ✔
(4) QRSP

Q.139 The following sentences can be rearranged to explain a basic biological process.
The first and last sentences of the paragraph are fixed. Select the correct order for the middle sentences (A, B, C, D, E).
Fixed First Sentence: Photosynthesis is the process by which plants convert light energy into chemical energy.
(A) These sugars provide the plant with the energy it needs to grow.
(B) This reaction requires carbon dioxide from the air and water from the soil.
(C) The process primarily occurs in the chloroplasts of plant cells.
(D) Using sunlight as the power source, the plant transforms these inputs.
(E) The final products of this transformation are glucose (a sugar) and oxygen.
Fixed Last Sentence: Oxygen, released as a byproduct, is essential for most life on Earth.

(1) CBDEA ✔
(2) EACBD
(3) BDCAE
(4) DEACB

Q.140 In the given question, a sentence is divided into different phrases and the first phrase (S1) is fixed. Choose the most appropriate order from the options given which best rearranges the remaining phrases to form a coherent sentence.
S1: When the earthquake struck
P: immediate medical assistance to those severely injured
Q: survivors from the debris and providing
R: teams worked tirelessly for days, pulling
S: the city without warning, the rescue

(1) RPSQ
(2) SRQP ✔
(3) PSRQ
(4) QSPR

Q.141 Read the sentence given below and identify the incorrectly spelt word.
During the catastrophic storm, the sailors relied on rudimentary tools to navigate the trecherous waters.

(1) navigate
(2) rudimentary
(3) trecherous ✔
(4) catastrophic

Q.142 Complete the direct speech in the following sentence correctly.
As the final bell rang, the teacher announced to the class, "_____"

(1) Their holiday begins tomorrow.
(2) The class would begin their holiday tomorrow.
(3) That your holiday begins tomorrow.
(4) Your holiday begins tomorrow! ✔

Q.143 Select the option that rectifies the INCORRECTLY spelt word in the given sentence.
The occurrance of such mischievous acts caused embarrassment to the secretary and the committee.

(1) comittee
(2) occurrence ✔
(3) mischievious
(4) embarassment

Q.144 Choose the option that expresses the given sentence in active voice.
Strict disciplinary measures were imposed by the administration to maintain order on campus.

(1) Order on campus was maintained through strict disciplinary measures by the administration.
(2) The administration imposed strict disciplinary measures to maintain order on campus. ✔
(3) The administration had imposed strict disciplinary measures to maintain order on campus.
(4) The administration was imposing strict disciplinary measures to maintain order on campus.

Q.145 Rectify the following sentence by choosing the option that contains the correct spellings of the incorrectly spelled words.
His unpridectable behaviour and unacceptable remarks caused controversy among the commitee members.

(1) unacceptible, controvirsy
(2) unpredictible, controvirsy
(3) unpredictable, committee ✔
(4) unaccepteable, comittee

Q.146 Select the correct passive form of the given sentence.
The gardener waters the plants every morning.

(1) The gardener is watered by the plants every morning.
(2) The plants are watered by the gardener every morning. ✔
(3) The plants were watered by the gardener every morning.
(4) The plants have been watered by the gardener every morning.

Q.147 Choose the correct form of present tense for the following sentence.
The lead scientist, who usually _____ fieldwork, _____ data in the lab due to the rainy season.

(1) is overseeing; analyzes
(2) **oversees; is currently analyzing ✔**
(3) oversaw; is analyzing
(4) oversees; analyzed

Q.148 Choose the option that presents a grammatically correct sentence in the passive voice.

(1) The confidential files should be keep in the locked cabinet.
(2) **All the invitations for the event had been sent out last week. ✔**
(3) The ancient manuscript has being carefully restored by the archivists.
(4) A standing ovation was gave to the performers by the audience.

Q.149 Select the most appropriate option that rectifies the incorrectly spelt word in the given sentence.
The professor appreciated her dilligence and punctuality.

(1) Dilligance
(2) Dilegence
(3) Dillagence
(4) **Diligence ✔**

Q.150 Select the INCORRECTLY spelt word

(1) Vintage
(2) Veterinary
(3) **Versatilety ✔**
(4) Vigilance

Q.151

Read the following passage and answer the questions given below.
In the highlands of Arunava Plateau, archaeologists recently uncovered the remains of an ancient observatory built nearly two thousand years ago. The structure, made of precisely aligned stone pillars, was positioned to track the movements of the sun and stars with remarkable accuracy. Researchers believe that the civilization inhabiting the plateau used the observatory not only for understanding seasonal changes but also for guiding agricultural decisions and ceremonial events. Among the findings were clay tablets marked with circular patterns, suggesting an early attempt at recording celestial cycles. What surprised scholars most was the complexity of the site's design, which indicated knowledge comparable to other advanced ancient cultures. The discovery has drawn historians, astronomers, and environmental scientists, all eager to learn how early societies blended astronomy with daily life. As further excavations continue, the observatory is expected to reshape existing theories about scientific development in isolated mountain regions and highlight the global nature of humanity's early search for understanding the skies.

What did archaeologists recently discover on the Arunava Plateau?

(1) **An ancient observatory built with stone pillars ✔**
(2) A lost village destroyed by landslides
(3) A network of underground trade tunnels
(4) A buried royal palace with gold ornaments

Quick Sarkari

Q.152

Read the following passage and answer the questions given below.
In the highlands of Arunava Plateau, archaeologists recently uncovered the remains of an ancient observatory built nearly two thousand years ago. The structure, made of precisely aligned stone pillars, was positioned to track the movements of the sun and stars with remarkable accuracy. Researchers believe that the civilization inhabiting the plateau used the observatory not only for understanding seasonal changes but also for guiding agricultural decisions and ceremonial events. Among the findings were clay tablets marked with circular patterns, suggesting an early attempt at recording celestial cycles. What surprised scholars most was the complexity of the site's design, which indicated knowledge comparable to other advanced ancient cultures. The discovery has drawn historians, astronomers, and environmental scientists, all eager to learn how early societies blended astronomy with daily life. As further excavations continue, the observatory is expected to reshape existing theories about scientific development in isolated mountain regions and highlight the global nature of humanity's early search for understanding the skies.

What tone does the passage maintain throughout?

(1) Suspenseful and fearful
(2) Humorous and casual
(3) Critical and doubtful
(4) **Objective and informative ✔**

Q.153

Read the following passage and answer the questions given below.
In the highlands of Arunava Plateau, archaeologists recently uncovered the remains of an ancient observatory built nearly two thousand years ago. The structure, made of precisely aligned stone pillars, was positioned to track the movements of the sun and stars with remarkable accuracy. Researchers believe that the civilization inhabiting the plateau used the observatory not only for understanding seasonal changes but also for guiding agricultural decisions and ceremonial events. Among the findings were clay tablets marked with circular patterns, suggesting an early attempt at recording celestial cycles. What surprised scholars most was the complexity of the site's design, which indicated knowledge comparable to other advanced ancient cultures. The discovery has drawn historians, astronomers, and environmental scientists, all eager to learn how early societies blended astronomy with daily life. As further excavations continue, the observatory is expected to reshape existing theories about scientific development in isolated mountain regions and highlight the global nature of humanity's early search for understanding the skies.

What is the central theme of the passage?

(1) The influence of foreign cultures on mountain societies
(2) **The advanced astronomical awareness of early civilizations ✔**
(3) The decline of scientific knowledge in ancient times
(4) The dangers of excavating high-altitude sites

QuickSarkari.com | WhatsApp Channel | Telegram: t.me/quick_sarkari

Q.154

Read the following passage and answer the questions given below.
In the highlands of Arunava Plateau, archaeologists recently uncovered the remains of an ancient observatory built nearly two thousand years ago. The structure, made of precisely aligned stone pillars, was positioned to track the movements of the sun and stars with remarkable accuracy. Researchers believe that the civilization inhabiting the plateau used the observatory not only for understanding seasonal changes but also for guiding agricultural decisions and ceremonial events. Among the findings were clay tablets marked with circular patterns, suggesting an early attempt at recording celestial cycles. What surprised scholars most was the complexity of the site's design, which indicated knowledge comparable to other advanced ancient cultures. The discovery has drawn historians, astronomers, and environmental scientists, all eager to learn how early societies blended astronomy with daily life. As further excavations continue, the observatory is expected to reshape existing theories about scientific development in isolated mountain regions and highlight the global nature of humanity's early search for understanding the skies.

Which structural pattern best describes the passage?

(1) A chronological biography of an ancient ruler
(2) **A description followed by implications for future study ✔**
(3) A dialogue between scientists and villagers
(4) A comparison between two archaeological sites

Q.155

Read the following passage and answer the questions given below.
In the highlands of Arunava Plateau, archaeologists recently uncovered the remains of an ancient observatory built nearly two thousand years ago. The structure, made of precisely aligned stone pillars, was positioned to track the movements of the sun and stars with remarkable accuracy. Researchers believe that the civilization inhabiting the plateau used the observatory not only for understanding seasonal changes but also for guiding agricultural decisions and ceremonial events. Among the findings were clay tablets marked with circular patterns, suggesting an early attempt at recording celestial cycles. What surprised scholars most was the complexity of the site's design, which indicated knowledge comparable to other advanced ancient cultures. The discovery has drawn historians, astronomers, and environmental scientists, all eager to learn how early societies blended astronomy with daily life. As further excavations continue, the observatory is expected to reshape existing theories about scientific development in isolated mountain regions and highlight the global nature of humanity's early search for understanding the skies.

Which title best fits the passage?

(1) A Journey Through the Desert Skies
(2) Lost Kingdom Beneath the Sands
(3) The Rise and Fall of a Forgotten Dynasty
(4) **The Mountain Observatory that Rewrote History ✔**

Q.156

Read the given passage and answer the questions that follow.
The art of doing nothing is often misunderstood. In today's fast-moving world, people take pride in being constantly busy, as if busyness alone proves one's worth. Yet, taking time to be idle can be deeply valuable. A person who strolls, observes, and dreams may come to understand life far better than someone always rushing through endless tasks. When we slow down, we begin to notice small but beautiful details — the laughter of children, the rustle of leaves, the sunlight playing on trees, and the faces of people passing by. Idleness does not mean laziness; it means living with awareness and enjoying each moment instead of constantly chasing success, money, or deadlines. Those who hurry all the time may appear productive, but they often miss life's quiet joys. True idleness allows us to rest, reflect, and reconnect with ourselves and the world around us, making life fuller and more meaningful.

What emotional attitude does the passage convey toward modern busyness?

(1) Indifference
(2) Confusion
(3) Admiration
(4) **Mild criticism ✔**

Q.157

Read the given passage and answer the questions that follow.
The art of doing nothing is often misunderstood. In today's fast-moving world, people take pride in being constantly busy, as if busyness alone proves one's worth. Yet, taking time to be idle can be deeply valuable. A person who strolls, observes, and dreams may come to understand life far better than someone always rushing through endless tasks. When we slow down, we begin to notice small but beautiful details — the laughter of children, the rustle of leaves, the sunlight playing on trees, and the faces of people passing by. Idleness does not mean laziness; it means living with awareness and enjoying each moment instead of constantly chasing success, money, or deadlines. Those who hurry all the time may appear productive, but they often miss life's quiet joys. True idleness allows us to rest, reflect, and reconnect with ourselves and the world around us, making life fuller and more meaningful.

What is the central message of the passage?

(1) Laziness should be encouraged.
(2) Hard work leads to success.
(3) Working less makes life easier.
(4) **Slowing down brings deeper meaning to life. ✔**

Q.158

Read the given passage and answer the questions that follow.
The art of doing nothing is often misunderstood. In today's fast-moving world, people take pride in being constantly busy, as if busyness alone proves one's worth. Yet, taking time to be idle can be deeply valuable. A person who strolls, observes, and dreams may come to understand life far better than someone always rushing through endless tasks. When we slow down, we begin to notice small but beautiful details — the laughter of children, the rustle of leaves, the sunlight playing on trees, and the faces of people passing by. Idleness does not mean laziness; it means living with awareness and enjoying each moment instead of constantly chasing success, money, or deadlines. Those who hurry all the time may appear productive, but they often miss life's quiet joys. True idleness allows us to rest, reflect, and reconnect with ourselves and the world around us, making life fuller and more meaningful.

Which of the following titles best captures the essence of the passage?

(1) How to Be Productive
(2) The Dreamer's Life
(3) The Joy of Laziness
(4) **The Value of Slowing Down ✔**

Q.159

Read the given passage and answer the questions that follow.
The art of doing nothing is often misunderstood. In today's fast-moving world, people take pride in being constantly busy, as if busyness alone proves one's worth. Yet, taking time to be idle can be deeply valuable. A person who strolls, observes, and dreams may come to understand life far better than someone always rushing through endless tasks. When we slow down, we begin to notice small but beautiful details — the laughter of children, the rustle of leaves, the sunlight playing on trees, and the faces of people passing by. Idleness does not mean laziness; it means living with awareness and enjoying each moment instead of constantly chasing success, money, or deadlines. Those who hurry all the time may appear productive, but they often miss life's quiet joys. True idleness allows us to rest, reflect, and reconnect with ourselves and the world around us, making life fuller and more meaningful.

Choose the word closest in meaning to "idle" as used in the passage.

(1) Peaceful
(2) Careless
(3) Energetic
(4) **Restful ✔**

Q.160

Read the given passage and answer the questions that follow.
The art of doing nothing is often misunderstood. In today's fast-moving world, people take pride in being constantly busy, as if busyness alone proves one's worth. Yet, taking time to be idle can be deeply valuable. A person who strolls, observes, and dreams may come to understand life far better than someone always rushing through endless tasks. When we slow down, we begin to notice small but beautiful details — the laughter of children, the rustle of leaves, the sunlight playing on trees, and the faces of people passing by. Idleness does not mean laziness; it means living with awareness and enjoying each moment instead of constantly chasing success, money, or deadlines. Those who hurry all the time may appear productive, but they often miss life's quiet joys. True idleness allows us to rest, reflect, and reconnect with ourselves and the world around us, making life fuller and more meaningful.

According to the passage, what is the main reason people take pride in being busy?

(1) They enjoy doing hard work.
(2) They want to avoid loneliness.
(3) **They believe it makes them seem more important. ✔**
(4) They dislike idleness.

Hindi Language and Comprehension

Q.161 सही वाक्य-क्रम वाले वाक्य का चयन कीजिए-

(1) आज फिर / आतंक से / चंपक वन / शेर सिंह के / काँप उठा
(2) आज फिर / शेर सिंह के / चंपक वन / आतंक से / काँप उठा
(3) **आज फिर / चंपक वन / शेर सिंह के / आतंक से / काँप उठा ✔**
(4) आज फिर / चंपक वन / आतंक से / शेर सिंह के / काँप उठा

Q.162 वाक्य के रिक्त स्थान को संबोधन कारक से पूर्ण करें।
..... देवी, मुझ पर कृपा करें ।

(1) रे
(2) अहो
(3) **हे ✔**
(4) हो

Q.163 मेरा बेटा .....वर्ष का है ।
उपर्युक्त वाक्य में रिक्त स्थान की पूर्ति के लिए उचित विशेषण शब्द का चयन करें –

(1) मिलनसार
(2) **सात ✔**
(3) लाडला
(4) सुंदर

Q.164 ' आकाश को चूमने वाला' वाक्यांश के लिए एक सार्थक शब्द होगा –

(1) गोचर
(2) **गगनचुंबी ✔**
(3) आकाशवृत्ति
(4) आकाशीय

Q.165 उपयुक्त 'क्रिया' का चयन कर रिक्त स्थान की पूर्ति कीजिए।
' सितारे आसमान में .....हैं ।'

(1) उतराते
(2) पिसते
(3) चमकते ✔
(4) खिलते

Q.166 वाक्य के रिक्त स्थान को सम्बन्ध कारक से पूर्ण करें।
प्रेमचंद ..... उपन्यास बहुत प्रसिद्ध हैं ।

(1) का
(2) की
(3) के ✔
(4) से

Q.167 वाक्य के रिक्त स्थान को अधिकरण कारक से पूर्ण करें।
हाथी जंगल .... रहता है ।

(1) के लिए
(2) में ✔
(3) पर
(4) को

Q.168 ' जिसे शोक न हो' वाक्यांश के लिए एक सार्थक शब्द का चुनाव कीजिए।

(1) अशुष्क
(2) अशंक
(3) अशीत
(4) अशोक ✔

Q.169 'जिसकी गहराई का पता न लग सके' वाक्यांश के लिए सार्थक शब्द क्या होगा ?

(1) अनदेखा
(2) अगाध
(3) अभय
(4) अथाह ✔

Q.170 निम्न लोकोक्ति का सही अर्थ अंकित कीजिए।
ऊँट के ऊपर ऊँट-

(1) भारी बोझ के ऊपर और अधिक बोझ डालना ✔
(2) पहले से भारी काम में कोई बढ़ोतरी नहीं की गई।
(3) कठिनाई में राहत देकर बोझ हल्का किया गया।
(4) उसने भारी बोझ को कम करने की कोशिश की

Q.171 नीचे दिए वाक्य में रिक्त-स्थान की पूर्ति के लिए दिए गए विकल्पों में से उचित क्रियापद चुनें- रामू से टहला भी नहीं _____।

(1) आता
(2) सकता
(3) करता
(4) जाता ✔

QuickSarkari.com | WhatsApp Channel | Telegram: t.me/quick_sarkari

Q.172 'उधेड़बुन में पड़ना' मुहावरे का सही अर्थ होगा -

(1) उन्नति पर होना

(2) भेद कह देना

(3) किसी समस्या के सोचने-विचारने में व्यस्त होना ✔

(4) बहुत कमतर होना

Q.173 निम्नलिखित वाक्यांश एक वाक्य का अभिन्न अंग हैं ,जो यहाँ क्रम में नहीं दिए गए हैं।
इनको क्रम में लगाइए – 1.मिलने को व्याकुल है और गायें 2.अपने बछड़ों को प्यार करने के 3.लिए उतावली हो रही हैं 4.पक्षी अपने बच्चों से

(1) 4,3,2,1

(2) 1,2,3,4

(3) 4,1,2,3 ✔

(4) 2,4,1,3

Q.174 दिये गये वाक्य का रिक्त स्थान सर्वोचित क्रिया शब्द से पूर्ण करें-- वह सफेद बिल्ली एक ऊँचे पेड़ पर आसानी से ..... गई ।

(1) उचक

(2) दौड़

(3) चढ़ ✔

(4) उतर

Q.175 देने की इच्छा' – उक्त वाक्यांश के स्थान पर निम्नलिखित में से किस एक शब्द का प्रयोग सार्थक है?
चयन करें-

(1) दित्सा ✔

(2) दुर्लभ

(3) अनुरक्त

(4) दूरदर्शी

Q.176 'पानी में आग लगाना' मुहावरे का अर्थ है--

(1) ठंडे को गर्म करना

(2) शांति स्थापित करना

(3) शांति को अशांति में बदलना ✔

(4) उत्कृष्ट प्रस्तुति देना

Q.177 'ओछे की प्रीत बालू की भीत' लोकोक्ति का अर्थ है--

(1) तुच्छ व्यक्ति के साथ मित्रता नहीं निभ सकती ✔

(2) बालू में प्रेम का बीज नहीं उपजता

(3) अधिक वस्तु चाहने वाले की संतुष्टि नहीं होती

(4) रेगिस्तान की बालू में पानी नहीं मिलता

Q.178 निम्नलिखित वाक्यांश के स्थान पर किस एक शब्द का प्रयोग सार्थक है? चयन करें- 'इंद्र का सारथी'

(1) भैरव

(2) मृत्युंजय

(3) मातलि ✔

(4) रथी

Q.179 'घोड़े बेचकर सोना' मुहावरे का सही अर्थ है-

(1) अपना आधिपत्य स्थापित करना

(2) निश्चिन्त होना ✔

(3) काम बिगाड़ना

(4) अनुपस्थित होना

Q.180 'एक तरकश के तीर होना' मुहावरे का सही अर्थ होगा -

(1) एक गुट के होना ✔

(2) एक चाल से दो को हराना

(3) मेल से बहुत बल बढ़ जाता है

(4) नीलम करना

Q.181 दिए गए वाक्य के रेखांकित शब्द का पर्यायवाची पहचानें - कठिन समय में साहस व्यक्ति को आगे बढ़ने की शक्ति देता है।

(1) हिम्मत ✔

(2) खिड़की

(3) सुई

(4) परदा

Q.182 निम्नलिखित वाक्य में रेखांकित शब्द का विलोम क्या होगा?
राजनेता के सामने वह मूक हो जाता है।

(1) मैत्री

(2) अहंकारी

(3) वाचाल ✔

(4) सम्यक

Q.183 दिए गए वाक्य के रेखांकित शब्द का पर्यायवाची पहचानें- समय पर निर्णय लेना कई समस्याओं से बचा सकता है।

(1) दीपक

(2) फैसला ✔

(3) टोपी

(4) मशीन

Q.184 निम्नलिखित वाक्य में से अशुद्ध वर्तनी वाले अंश को पहचानें - सुबह की सैर शरीर और मन दोनों को पूर्ण ताजगी प्रदन करती है।

(1) प्रदन करती है ✔

(2) दोनों को पूर्ण ताजगी

(3) शरीर और मन

(4) सुबह की सैर

Q.185 निम्नलिखित वाक्य में वर्तनी की त्रुटियाँ पहचानें और शुद्ध वाक्य लिखेंतुम सच-समझ कर बोल कर, तूम्हारी बातो से लोग को दुख होता हैं।

(1) तोम सोच-सामज कर बोला करो, तुम्हाऋ बातों से लोगों के दुख होता हैं।

(2) तूम सोच-समज कर बोला करो, तुम्हारी बातों से लोगों को दोख होता है।

(3) तुम सोच-समझ कर बोला करो, तुम्हारी बातों से लोगों को दुख होता है। ✔

(4) तुम सोछ-समाझ कर बोलो करो, तुम्हरी बातों में लोग का दुख होता है।

QuickSarkari.com | WhatsApp Channel | Telegram: t.me/quick_sarkari

Q.186 निम्न विकल्पों में वाक्य के रेखांकित शब्द में शुद्ध वर्तनी का चयन करें- वह हमारे मुख्य आतिथि थे।

(1) अतीथी
(2) अतिथी
(3) अतिथि ✔
(4) अतीथि

Q.187 निम्नलिखित वाक्य में रेखांकित शब्द का विलोम क्या होगा?
कोणार्क का सूर्य मंदिर अपनी शैली में भव्य है।

(1) साधारण ✔
(2) अनार्य
(3) अद्वितीय
(4) अनुपम

Q.188 निम्नलिखित वाक्य में रेखांकित शब्द का विलोम क्या होगा?
शंकराचार्य ने स्वल्पायु में ज्ञान का साक्षात्कार किया।

(1) दायिनी
(2) मेदिनी
(3) प्राणवायु
(4) चिरायु ✔

Q.189 निम्नलिखित वाक्य में रेखांकित शब्द का विलोम क्या होगा?
भक्ति काल में सगुण की उपासना की गई है।

(1) भक्ति
(2) निर्गुण ✔
(3) संगत
(4) श्रद्धा

Q.190 दिये गये वाक्य के किस अंश में त्रुटि है?
संकीर्ण विचारों का परित्याग कर देने में ही वास्तविक प्रगती निहित है।

(1) प्रगती निहित है। ✔
(2) में ही वास्तविक
(3) संकीर्ण विचारों का
(4) परित्याग कर देने

QuickSarkari

Q.191

दिए गए गद्यांश के आधार पर पूछे गए प्रश्नों का उत्तर दीजिए।
आत्मबोध मूलत: दर्शनशास्त्र का एक प्रचलित शब्द है जिसका प्रयोग साहित्य में भी बखूबी होता है। निराला और जयशंकर प्रसाद से लेकर मुक्तिबोध और अज्ञेय ने भी अपने लेखन में 'आत्मबोध' शब्द का प्रयोग किया है । यह शब्द अपने अर्थ और प्रयोग की दृष्टि से 'आत्मज्ञान' से कुछ भिन्न है। आत्मबोध में एक निजता का भाव है। अपने को बाहर-भीतर से जानना, अपनी शक्ति और सामर्थ्य के प्रति सचेत होना, अपनी सीमाओं के प्रति जागरूक होना आत्मबोध है। आत्मबोध में व्यक्ति का कर्तव्य बोध- शामिल है, व्यक्ति की स्वतंत्रता के साथ सामाजिक चेतना भी निहित है। आत्मबोध अंत: जागरण की ओर संकेत करता है।
जब कोई व्यक्ति निजी स्तर पर आंतरिक रूप से जागृत नहीं होगा, उसमें सामाजिक जागरूकता नहीं आ सकती। अंत: जागरण सामाजिक जागरण की पहली शर्त है। आध्यात्मिक दृष्टि से से कोई व्यक्ति आत्मबोध के बाद अर्थहीन इच्छाओं और पाशविक वृत्तियों से मुक्त होकर वास्तविक स्वतंत्रता का अनुभव करता है।

आत्मबोध में व्यक्ति का क्या शामिल होता है?

(1) पाशविक वृत्ति
(2) **कर्तव्य बोध ✔**
(3) सामर्थ्य
(4) शक्ति

Q.192

दिए गए गद्यांश के आधार पर पूछे गए प्रश्नों का उत्तर दीजिए।
आत्मबोध मूलत: दर्शनशास्त्र का एक प्रचलित शब्द है जिसका प्रयोग साहित्य में भी बखूबी होता है। निराला और जयशंकर प्रसाद से लेकर मुक्तिबोध और अज्ञेय ने भी अपने लेखन में 'आत्मबोध' शब्द का प्रयोग किया है । यह शब्द अपने अर्थ और प्रयोग की दृष्टि से 'आत्मज्ञान' से कुछ भिन्न है। आत्मबोध में एक निजता का भाव है। अपने को बाहर-भीतर से जानना, अपनी शक्ति और सामर्थ्य के प्रति सचेत होना, अपनी सीमाओं के प्रति जागरूक होना आत्मबोध है। आत्मबोध में व्यक्ति का कर्तव्य बोध- शामिल है, व्यक्ति की स्वतंत्रता के साथ सामाजिक चेतना भी निहित है। आत्मबोध अंत: जागरण की ओर संकेत करता है।
जब कोई व्यक्ति निजी स्तर पर आंतरिक रूप से जागृत नहीं होगा, उसमें सामाजिक जागरूकता नहीं आ सकती। अंत: जागरण सामाजिक जागरण की पहली शर्त है। आध्यात्मिक दृष्टि से से कोई व्यक्ति आत्मबोध के बाद अर्थहीन इच्छाओं और पाशविक वृत्तियों से मुक्त होकर वास्तविक स्वतंत्रता का अनुभव करता है।

सामाजिक जागरण की पहली शर्त क्या होती है?

(1) **अंत: जागरण ✔**
(2) उन्माद
(3) तीव्रता
(4) सक्रिय

Q.193

दिए गए गद्यांश के आधार पर पूछे गए प्रश्नों का उत्तर दीजिए।
आत्मबोध मूलत: दर्शनशास्त्र का एक प्रचलित शब्द है जिसका प्रयोग साहित्य में भी बखूबी होता है। निराला और जयशंकर प्रसाद से लेकर मुक्तिबोध और अज्ञेय ने भी अपने लेखन में 'आत्मबोध' शब्द का प्रयोग किया है । यह शब्द अपने अर्थ और प्रयोग की दृष्टि से 'आत्मज्ञान' से कुछ भिन्न है। आत्मबोध में एक निजता का भाव है। अपने को बाहर-भीतर से जानना, अपनी शक्ति और सामर्थ्य के प्रति सचेत होना, अपनी सीमाओं के प्रति जागरूक होना आत्मबोध है। आत्मबोध में व्यक्ति का कर्तव्य बोध- शामिल है, व्यक्ति की स्वतंत्रता के साथ सामाजिक चेतना भी निहित है। आत्मबोध अंत: जागरण की ओर संकेत करता है।
जब कोई व्यक्ति निजी स्तर पर आंतरिक रूप से जागृत नहीं होगा, उसमें सामाजिक जागरूकता नहीं आ सकती। अंत: जागरण सामाजिक जागरण की पहली शर्त है। आध्यात्मिक दृष्टि से से कोई व्यक्ति आत्मबोध के बाद अर्थहीन इच्छाओं और पाशविक वृत्तियों से मुक्त होकर वास्तविक स्वतंत्रता का अनुभव करता है।

प्रस्तुत गद्यांश के लिए उचित शीर्षक क्या है?

(1) सामाजिक चेतना
(2) मनोविज्ञान
(3) **आत्मबोध ✔**
(4) दर्शनशास्त्र

Q.194

दिए गए गद्यांश के आधार पर पूछे गए प्रश्नों का उत्तर दीजिए।
आत्मबोध मूलत: दर्शनशास्त्र का एक प्रचलित शब्द है जिसका प्रयोग साहित्य में भी बखूबी होता है। निराला और जयशंकर प्रसाद से लेकर मुक्तिबोध और अज्ञेय ने भी अपने लेखन में 'आत्मबोध' शब्द का प्रयोग किया है । यह शब्द अपने अर्थ और प्रयोग की दृष्टि से 'आत्मज्ञान' से कुछ भिन्न है। आत्मबोध में एक निजता का भाव है। अपने को बाहर-भीतर से जानना, अपनी शक्ति और सामर्थ्य के प्रति सचेत होना, अपनी सीमाओं के प्रति जागरूक होना आत्मबोध है। आत्मबोध में व्यक्ति का कर्तव्य बोध- शामिल है, व्यक्ति की स्वतंत्रता के साथ सामाजिक चेतना भी निहित है। आत्मबोध अंत: जागरण की ओर संकेत करता है।
जब कोई व्यक्ति निजी स्तर पर आंतरिक रूप से जागृत नहीं होगा, उसमें सामाजिक जागरूकता नहीं आ सकती। अंत: जागरण सामाजिक जागरण की पहली शर्त है। आध्यात्मिक दृष्टि से से कोई व्यक्ति आत्मबोध के बाद अर्थहीन इच्छाओं और पाशविक वृत्तियों से मुक्त होकर वास्तविक स्वतंत्रता का अनुभव करता है।

निम्नलिखित में से किस एक विकल्प में 'भाव' के विलोम का उचित प्रयोग हुआ है?

(1) **अभाव ✔**
(2) खलक
(3) खल्क
(4) लोक

Q.195

दिए गए गद्यांश के आधार पर पूछे गए प्रश्नों का उत्तर दीजिए।
आत्मबोध मूलत: दर्शनशास्त्र का एक प्रचलित शब्द है जिसका प्रयोग साहित्य में भी बखूबी होता है। निराला और जयशंकर प्रसाद से लेकर मुक्तिबोध और अज्ञेय ने भी अपने लेखन में 'आत्मबोध' शब्द का प्रयोग किया है । यह शब्द अपने अर्थ और प्रयोग की दृष्टि से 'आत्मज्ञान' से कुछ भिन्न है। आत्मबोध में एक निजता का भाव है। अपने को बाहर-भीतर से जानना, अपनी शक्ति और सामर्थ्य के प्रति सचेत होना, अपनी सीमाओं के प्रति जागरूक होना आत्मबोध है। आत्मबोध में व्यक्ति का कर्तव्य बोध- शामिल है, व्यक्ति की स्वतंत्रता के साथ सामाजिक चेतना भी निहित है। आत्मबोध अंत: जागरण की ओर संकेत करता है।
जब कोई व्यक्ति निजी स्तर पर आंतरिक रूप से जागृत नहीं होगा, उसमें सामाजिक जागरूकता नहीं आ सकती। अंत: जागरण सामाजिक जागरण की पहली शर्त है। आध्यात्मिक दृष्टि से से कोई व्यक्ति आत्मबोध के बाद अर्थहीन इच्छाओं और पाशविक वृत्तियों से मुक्त होकर वास्तविक स्वतंत्रता का अनुभव करता है।

प्रस्तुत गद्यांश का वास्तविक जीवन से सम्बन्ध क्या है?

(1) जन जागरण का महत्त्व
(2) समय का महत्त्व
(3) **आत्मबोध का महत्त्व ✔**
(4) स्वतंत्रता का महत्त्व

Q.196

दिए गए गद्यांश के आधार पर पूछे गए प्रश्नों का उत्तर दीजिए।
आशावाद वस्तुत: एक मन: स्थिति है, जिसका अर्थ यह है कि भविष्य अच्छा होगा । आशावाद की परिभाषा के लिए अमूमन पानी से आधे भरे गिलास का उदाहरण दिया जाता है। जो लोग कहते हैं की गिलास आधा भरा है, वे आशावादी होते हैं और जो लोग कहते हैं कि गिलास आधा खाली है उन्हें निराशावादी माना जाता है। 'भरा' और 'खाली' व्यक्ति की मन: स्थिति की सूचना देते हैं। इनसे जीवन दृष्टि का भी पता चलता है। आशावाद व्यक्ति के सकारात्मक दृष्टिकोण का संसूचक होता है। प्राचीन आशावादी दार्शनिकों में अरस्तू, एपीक्यूरस आदि प्रमुख हैं। इस संसार को यथासंभव संसार मानना 'आशावाद' है। यह एक विशेष दृष्टिकोण है। इसके अनुसार, जीवन के संदर्भ में किसी भी घटना अथवा किसी भी वस्तु के हमेशा उज्ज्वल पक्ष को देखना, उसके बारे में सकारात्मक-आशामयी दृष्टि रखना 'आशावाद' है। इस दृष्टिकोण वाले व्यक्ति का स्वभाव सदैव अच्छी बातों और अच्छे परिणामों की आशा करने वाला होता है।

'आशावाद' का उचित अर्थ क्या है?

(1) नकारात्मक दृष्टिकोण
(2) जीवन का उतार-चढ़ाव
(3) किस्मत का खेल
(4) **अच्छे भविष्य की कामना ✔**

QuickSarkari.com | WhatsApp Channel | Telegram: t.me/quick_sarkari

Q.197

दिए गए गद्यांश के आधार पर पूछे गए प्रश्नों का उत्तर दीजिए।
आशावाद वस्तुत: एक मन: स्थिति है, जिसका अर्थ यह है कि भविष्य अच्छा होगा । आशावाद की परिभाषा के लिए अमूमन पानी से आधे भरे गिलास का उदाहरण दिया जाता है। जो लोग कहते हैं की गिलास आधा भरा है, वे आशावादी होते हैं और जो लोग कहते हैं कि गिलास आधा खाली है उन्हें निराशावादी माना जाता है। 'भरा' और 'खाली' व्यक्ति की मन: स्थिति की सूचना देते हैं। इनसे जीवन दृष्टि का भी पता चलता है। आशावाद व्यक्ति के सकारात्मक दृष्टिकोण का संसूचक होता है। प्राचीन आशावादी दार्शनिकों में अरस्तू, एपीक्यूरस आदि प्रमुख हैं। इस संसार को यथासंभव संसार मानना 'आशावाद' है। यह एक विशेष दृष्टिकोण है। इसके अनुसार, जीवन के संदर्भ में किसी भी घटना अथवा किसी भी वस्तु के हमेशा उज्ज्वल पक्ष को देखना, उसके बारे में सकारात्मक-आशामयी दृष्टि रखना 'आशावाद' है। इस दृष्टिकोण वाले व्यक्ति का स्वभाव सदैव अच्छी बातों और अच्छे परिणामों की आशा करने वाला होता है।

प्रस्तुत गद्यांश का वास्तविक जीवन से सम्बन्ध क्या है?

(1) समकालीन समाज का महत्त्व
(2) व्यक्ति के नकारात्मक दृष्टिकोण का महत्त्व
(3) दर्शन का महत्त्व
(4) आशावाद का महत्त्व ✓

Q.198

दिए गए गद्यांश के आधार पर पूछे गए प्रश्नों का उत्तर दीजिए।
आशावाद वस्तुत: एक मन: स्थिति है, जिसका अर्थ यह है कि भविष्य अच्छा होगा । आशावाद की परिभाषा के लिए अमूमन पानी से आधे भरे गिलास का उदाहरण दिया जाता है। जो लोग कहते हैं की गिलास आधा भरा है, वे आशावादी होते हैं और जो लोग कहते हैं कि गिलास आधा खाली है उन्हें निराशावादी माना जाता है। 'भरा' और 'खाली' व्यक्ति की मन: स्थिति की सूचना देते हैं। इनसे जीवन दृष्टि का भी पता चलता है। आशावाद व्यक्ति के सकारात्मक दृष्टिकोण का संसूचक होता है। प्राचीन आशावादी दार्शनिकों में अरस्तू, एपीक्यूरस आदि प्रमुख हैं। इस संसार को यथासंभव संसार मानना 'आशावाद' है। यह एक विशेष दृष्टिकोण है। इसके अनुसार, जीवन के संदर्भ में किसी भी घटना अथवा किसी भी वस्तु के हमेशा उज्ज्वल पक्ष को देखना, उसके बारे में सकारात्मक-आशामयी दृष्टि रखना 'आशावाद' है। इस दृष्टिकोण वाले व्यक्ति का स्वभाव सदैव अच्छी बातों और अच्छे परिणामों की आशा करने वाला होता है।

निम्नलिखित में से किस एक विकल्प में 'संसार' के पर्याय का प्रयोग हुआ है?

(1) अर्णव
(2) अंबुधि
(3) अब्धि
(4) भव ✓

QuickSarkari.com | WhatsApp Channel | Telegram: t.me/quick_sarkari

Q.199

दिए गए गद्यांश के आधार पर पूछे गए प्रश्नों का उत्तर दीजिए।
आशावाद वस्तुत: एक मन: स्थिति है, जिसका अर्थ यह है कि भविष्य अच्छा होगा । आशावाद की परिभाषा के लिए अमूमन पानी से आधे भरे गिलास का उदाहरण दिया जाता है। जो लोग कहते हैं की गिलास आधा भरा है, वे आशावादी होते हैं और जो लोग कहते हैं कि गिलास आधा खाली है उन्हें निराशावादी माना जाता है। 'भरा' और 'खाली' व्यक्ति की मन: स्थिति की सूचना देते हैं। इनसे जीवन दृष्टि का भी पता चलता है। आशावाद व्यक्ति के सकारात्मक दृष्टिकोण का संसूचक होता है। प्राचीन आशावादी दार्शनिकों में अरस्तू, एपीक्यूरस आदि प्रमुख हैं। इस संसार को यथासंभव संसार मानना 'आशावाद' है। यह एक विशेष दृष्टिकोण है। इसके अनुसार, जीवन के संदर्भ में किसी भी घटना अथवा किसी भी वस्तु के हमेशा उज्ज्वल पक्ष को देखना, उसके बारे में सकारात्मक-आशामयी दृष्टि रखना 'आशावाद' है। इस दृष्टिकोण वाले व्यक्ति का स्वभाव सदैव अच्छी बातों और अच्छे परिणामों की आशा करने वाला होता है।

जीवन के संदर्भ में किसी भी घटना अथवा किसी भी वस्तु के हमेशा उज्ज्वल पक्ष को देखना एवंउसके बारे में सकारात्मक दृष्टि रखना क्या कहलाता है?

(1) निराशावाद
(2) **आशावाद ✔**
(3) मानवतावाद
(4) संवेदना के धरातल

Q.200

दिए गए गद्यांश के आधार पर पूछे गए प्रश्नों का उत्तर दीजिए।
आशावाद वस्तुत: एक मन: स्थिति है, जिसका अर्थ यह है कि भविष्य अच्छा होगा । आशावाद की परिभाषा के लिए अमूमन पानी से आधे भरे गिलास का उदाहरण दिया जाता है। जो लोग कहते हैं की गिलास आधा भरा है, वे आशावादी होते हैं और जो लोग कहते हैं कि गिलास आधा खाली है उन्हें निराशावादी माना जाता है। 'भरा' और 'खाली' व्यक्ति की मन: स्थिति की सूचना देते हैं। इनसे जीवन दृष्टि का भी पता चलता है। आशावाद व्यक्ति के सकारात्मक दृष्टिकोण का संसूचक होता है। प्राचीन आशावादी दार्शनिकों में अरस्तू, एपीक्यूरस आदि प्रमुख हैं। इस संसार को यथासंभव संसार मानना 'आशावाद' है। यह एक विशेष दृष्टिकोण है। इसके अनुसार, जीवन के संदर्भ में किसी भी घटना अथवा किसी भी वस्तु के हमेशा उज्ज्वल पक्ष को देखना, उसके बारे में सकारात्मक-आशामयी दृष्टि रखना 'आशावाद' है। इस दृष्टिकोण वाले व्यक्ति का स्वभाव सदैव अच्छी बातों और अच्छे परिणामों की आशा करने वाला होता है।

प्रस्तुत गद्यांश के लिए उचित शीर्षक क्या है?

(1) संस्मरण
(2) **आशावाद ✔**
(3) संवाद
(4) पर्यावरण और साहित्य "

Answer Key / उत्तर कुंजी

1 2	**2** 2	**3** 3	**4** 3	**5** 3	**6** 2	**7** 4	**8** 1	**9** 2	**10** 3	**11** 3	**12** 3	**13** 1	**14** 4	**15** 3
16 4	**17** 2	**18** 4	**19** 3	**20** 1	**21** 3	**22** 2	**23** 4	**24** 1	**25** 4	**26** 3	**27** 3	**28** 4	**29** 4	**30** 2
31 1	**32** 3	**33** 1	**34** 2	**35** 2	**36** 1	**37** 2	**38** 3	**39** 3	**40** 4	**41** 2	**42** 1	**43** 2	**44** 4	**45** 4
46 3	**47** 4	**48** 4	**49** 3	**50** 4	**51** 4	**52** 4	**53** 3	**54** 3	**55** 2	**56** 3	**57** 3	**58** 2	**59** 1	**60** 2
61 4	**62** 4	**63** 1	**64** 1	**65** 2	**66** 4	**67** 1	**68** 4	**69** 3	**70** 4	**71** 1	**72** 3	**73** 2	**74** 1	**75** 1
76 1	**77** 3	**78** 1	**79** 3	**80** 1	**81** 1	**82** 4	**83** 4	**84** 2	**85** 4	**86** 1	**87** 3	**88** 3	**89** 3	**90** 4

91 4	**92** 4	**93** 2	**94** 4	**95** 4	**96** 4	**97** 4	**98** 4	**99** 2	**100** 1	**101** 2	**102** 2	**103** 4	**104** 3	**105** 1
106 2	**107** 4	**108** 2	**109** 3	**110** 1	**111** 3	**112** 2	**113** 3	**114** 4	**115** 1	**116** 1	**117** 3	**118** 2	**119** 2	**120** 2
121 2	**122** 2	**123** 3	**124** 3	**125** 3	**126** 1	**127** 3	**128** 1	**129** 3	**130** 3	**131** 4	**132** 3	**133** 3	**134** 4	**135** 3
136 1	**137** 1	**138** 3	**139** 1	**140** 2	**141** 3	**142** 4	**143** 2	**144** 2	**145** 3	**146** 2	**147** 2	**148** 2	**149** 4	**150** 3
151 1	**152** 4	**153** 2	**154** 2	**155** 4	**156** 4	**157** 4	**158** 4	**159** 4	**160** 3	**161** 3	**162** 3	**163** 2	**164** 2	**165** 3
166 3	**167** 2	**168** 4	**169** 4	**170** 1	**171** 4	**172** 3	**173** 3	**174** 3	**175** 1	**176** 3	**177** 1	**178** 3	**179** 2	**180** 1
181 1	**182** 3	**183** 2	**184** 1	**185** 3	**186** 3	**187** 1	**188** 4	**189** 2	**190** 1	**191** 2	**192** 1	**193** 3	**194** 1	**195** 3
196 4	**197** 4	**198** 4	**199** 2	**200** 2										

Quick Sarkari

GOVT. OF NCT OF DELHI
Delhi Subordinate Services Selection Board
FC-18, Institutional Area, Karkardooma, Delhi – 110092.
www.dsssb.delhigovt.nic.in

Participant ID	
Participant Name	
Test Center Name	Aadarsh Pariksha Kendra CENTER B - Gate No 2 - Noida Sector 64
Test Date	02/03/2026
Test Time	9:00 AM - 11:00 AM
Subject	Assistant Security Officer

Section : **General intelligence and Reasoning Ability**

Q.1 **All 69 people are standing in a row facing North. Danny is 9th from the left end while Richard is 15th from the right end. How many people are there between Danny and Richard?**

Ans
✗ 1. 46
✓ 2. 45
✗ 3. 44
✗ 4. 43

Question ID : **4410091463306**
Option 1 ID : **4410095781361**
Option 2 ID : **4410095781360**
Option 3 ID : **4410095781359**
Option 4 ID : **4410095781358**

Q.2 **Refer to the following letter series and answer the question. Counting to be done from left to right only.**
(Left) Z D I N H F Q C V V U H K T M A T L Z (Right)
How many such vowels are there each of which is immediately preceded by a consonant and also immediately followed by a consonant?

Ans
✗ 1. One
✓ 2. Three
✗ 3. Two
✗ 4. Four

Question ID : **441009778104**
Option 1 ID : **4410093066419**
Option 2 ID : **4410093066421**
Option 3 ID : **4410093066420**
Option 4 ID : **4410093066422**

QuickSarkari.com | WhatsApp Channel | Telegram: t.me/quick_sarkari

Q.3 Seven boxes A, L, R, M, I, N and G are kept one over the other but not necessarily in the same order.
N is kept immediately above G. L is kept immediately above R. Only I is kept above A. Only two boxes are kept above N. L is not kept at third position from the bottom.
How many boxes are kept between M and I?

Ans
✗ 1. One
✗ 2. Two
✓ 3. Three
✗ 4. Four

Question ID : **4410091463248**
Option 1 ID : **4410095781130**
Option 2 ID : **4410095781131**
Option 3 ID : **4410095781132**
Option 4 ID : **4410095781133**

Q.4 W,I,N,T,E,R and S are sitting around a circular table facing the centre of the table.
E sits to the immediate left of S. R sits to the immediate left of I. I sits second to the left of T. W sits third to the left of S.
Who sits fourth to the right of N?

Ans
✗ 1. I
✗ 2. W
✓ 3. T
✗ 4. R

Question ID : **4410091463167**
Option 1 ID : **4410095780807**
Option 2 ID : **4410095780806**
Option 3 ID : **4410095780809**
Option 4 ID : **4410095780808**

Q.5 Seven people F, G, H, Q, R, S and T are sitting around a circular table facing the center of the table. Only three people sit between T and F when counted from the right of F. Only three people sit between S and R when counted from the left of S. Q sits to the immediate right of T. H is an immediate neighbor of F as well as R.
Who sits to the second to the left of G?

Ans
✗ 1. S
✗ 2. Q
✓ 3. H
✗ 4. T

Question ID : **441009788346**
Option 1 ID : **4410093107383**
Option 2 ID : **4410093107386**
Option 3 ID : **4410093107385**
Option 4 ID : **4410093107384**

Q.6 In a certain code language,
'A x B' means 'A is the son of B'
'A - B' means ' A is the sister of B'
'A > B' means 'A is the wife of B'
'A < B' means ' A is the father of B'

Which of the following mean(s) that B is the son's wife's father of G?
I. B < C - D > F x G
II. B < C x D - F > G
III. B > C x D < F - G
IV. B - C x D > F < G

Ans
✗ 1. Both II and IV
✓ 2. Only I
✗ 3. Both I and III
✗ 4. Only III

Question ID : **4410091510381**
Option 1 ID : **4410095966035**
Option 2 ID : **4410095966032**
Option 3 ID : **4410095966034**
Option 4 ID : **4410095966033**

Q.7 Seven people, G, L, A, M, O, U and R are sitting in a row, facing north.
Only two people sit between O and G. Only A sits to the right of U. Only one person sits between G and U. L sits at some place to the right of R but at some place to the left of M.
Who sits third from the right end of the line?

Ans
✗ 1. G
✗ 2. R
✗ 3. A
✓ 4. M

Question ID : **4410091463209**
Option 1 ID : **4410095780974**
Option 2 ID : **4410095780977**
Option 3 ID : **4410095780975**
Option 4 ID : **4410095780976**

Q.8 Refer to the following letter series and answer the question that follows. Counting to be done from left to right only.

(Left) Y W F F J F G X P G B W A C U E C X H C Y (Right)

How many such vowels are there, each of which is immediately preceded by a vowel and also immediately followed by a consonant?

Ans
✓ 1. One
✗ 2. None
✗ 3. Two
✗ 4. Three

Question ID : **441009782845**
Option 1 ID : **4410093085384**
Option 2 ID : **4410093085383**
Option 3 ID : **4410093085385**
Option 4 ID : **4410093085386**

Q.9 Refer to the following letter series and answer the question. Counting to be done from left to right only.
(Left) L V Y I S L F T A N T A K T P C U B F (Right)
How many such consonants are there each of which is immediately preceded by a vowel and also immediately followed by a consonant?

Ans
✗ 1. One
✓ 2. Four
✗ 3. Two
✗ 4. Three

Question ID : **441009778105**
Option 1 ID : **4410093066423**
Option 2 ID : **4410093066426**
Option 3 ID : **4410093066424**
Option 4 ID : **4410093066425**

Q.10 In a row of people all facing North, Andy is 3rd from the left end. Terrence is 11th from the left end. Terrence is exactly between Andy and Keith. If Keith is 6th from the right end of the line, how many people are there in the row?

Ans
✗ 1. 22
✗ 2. 23
✓ 3. 24
✗ 4. 21

Question ID : **4410091463290**
Option 1 ID : **4410095781295**
Option 2 ID : **4410095781296**
Option 3 ID : **4410095781297**
Option 4 ID : **4410095781294**

Q.11 In a certain code language, 'HIDE' is coded as '9768' and 'DINE' is coded as '4869'. What is the code for 'N' in the given code language?

Ans
✗ 1. 8
✗ 2. 7
✓ 3. 4
✗ 4. 6

Question ID : **4410091463411**
Option 1 ID : **4410095781781**
Option 2 ID : **4410095781779**
Option 3 ID : **4410095781778**
Option 4 ID : **4410095781780**

Q.12 Each of C, E, R, T, A, I and N has an exam on a different day of a week starting from Monday and ending on Sunday of the same week. Only three people have exam between T and E. E has exam on the last day of the week. Only one person has exam between N and I. C has exam immediately the day before A. R doesn't have exam on Friday. How many people have exam between R and C?

Ans
✗ 1. Four
✗ 2. One
✓ 3. Three
✗ 4. Two

Question ID : **4410091463339**
Option 1 ID : **4410095781493**
Option 2 ID : **4410095781490**
Option 3 ID : **4410095781492**
Option 4 ID : **4410095781491**

Q.13 In a certain code language, 'TRAM' is coded as '4851' and 'GRAM' is coded as '4183'. What is the code for 'G' in the given code language?

Ans
✓ 1. 3
✗ 2. 4
✗ 3. 1
✗ 4. 8

Question ID : **441009795959**
Option 1 ID : **4410093137835**
Option 2 ID : **4410093137837**
Option 3 ID : **4410093137836**
Option 4 ID : **4410093137838**

Q.14 In a certain language,
'A + B' means 'A is the son of B'
'A - B' means 'A is the brother of B'
'A x B' means 'A is the wife of B'
'A & B' means 'A is the father of B'

Which of the following mean(s) that G is the wife's brother of P?
I. G + F & K - L x P
II. G & F x K + L - P
III. G & F - K x L + P
IV. G x F & K - L + P

Ans
✗ 1. Both I and IV
✗ 2. Both II and III
✗ 3. Only IV
✓ 4. Only I

Question ID : **4410091510347**
Option 1 ID : **4410095965903**
Option 2 ID : **4410095965902**
Option 3 ID : **4410095965901**
Option 4 ID : **4410095965900**

QuickSarkari.com | WhatsApp Channel | Telegram: t.me/quick_sarkari

Q.15 Refer to the following series and answer the question (all numbers are single-digit numbers only) Counting to be done from left to right only.
(Left) 4 9 3 5 2 7 6 8 1 7 4 9 2 3 8 5 1 6 9 2 7 3 4 1 8 6 5 (Right)
How many such odd digits are there each of which is immediately followed by an even digit and also immediately preceded by another even digit?9128

Ans
✗ 1. One
✗ 2. Two
✓ 3. More than three
✗ 4. Three

Question ID : **441009795112**
Option 1 ID : **4410093134448**
Option 2 ID : **4410093134449**
Option 3 ID : **4410093134447**
Option 4 ID : **4410093134450**

Q.16 Refer to the following letter series and answer the question. Counting to be done from left to right only.
(Left) K L M O P Q R S U V W X Y (Right)
How many letters are immediately followed by vowels?

Ans
✗ 1. One
✗ 2. Three
✗ 3. Four
✓ 4. Two

Question ID : **441009778454**
Option 1 ID : **4410093067819**
Option 2 ID : **4410093067821**
Option 3 ID : **4410093067822**
Option 4 ID : **4410093067820**

Q.17 Refer to the following letter, symbol series and answer the question. Counting to be done from left to right only:
(Left) E * A Ω I & U @ O % E * A Ω I @ U & O # E (Right)
How many such symbols are there, each of which is immediately preceded by a vowel and also immediately followed by another symbol?

Ans
✗ 1. Two
✓ 2. None
✗ 3. One
✗ 4. Three

Question ID : **441009797888**
Option 1 ID : **4410093145553**
Option 2 ID : **4410093145551**
Option 3 ID : **4410093145552**
Option 4 ID : **4410093145554**

QuickSarkari

Q.18 Refer to the following letter, symbol series and answer the question. Counting to be done from left to right only
(Left) N & € Y R © L @ R Z Q # Y H @ U & F * * Y % (Right)
How many such letter are there each of which is immediately preceded by a letter and also immediately followed by a symbol?

Ans
✗ 1. Four
✗ 2. Five
✗ 3. Two
✓ 4. Three

Question ID : **441009790804**
Option 1 ID : **4410093117216**
Option 2 ID : **4410093117218**
Option 3 ID : **4410093117217**
Option 4 ID : **4410093117215**

Q.19 Refer to the following letter series and answer the question. Counting to be done from left to right only.
(Left) N G M D J G U J S O R P T X Y N G P O (Right)
How many such consonants are there each of which is immediately preceded by a vowel and also immediately followed by a consonant?

Ans
✗ 1. Three
✗ 2. One
✓ 3. Two
✗ 4. Four

Question ID : **441009778109**
Option 1 ID : **4410093066441**
Option 2 ID : **4410093066439**
Option 3 ID : **4410093066440**
Option 4 ID : **4410093066442**

Q.20 W, I, N, T, E, R and S are sitting around a circular table facing the centre of the table.
Only four people sit between I and N when counted from the right of I. I sits third to the left of W. E sits third to the left of S. R is an immediate neighbor of both N and W.
How many people sit between T and R when counted from the right of T?

Ans
✓ 1. Two
✗ 2. Three
✗ 3. One
✗ 4. Four

Question ID : **4410091463173**
Option 1 ID : **4410095780831**
Option 2 ID : **4410095780832**
Option 3 ID : **4410095780830**
Option 4 ID : **4410095780833**

Section : **General intelligence and Reasoning Ability1**

Q.1 AE 3 is related to CG 9 in a certain way. In the same way, DH 4 is related to FJ 16.
To which of the following is MP 5 related to following the same logic?

Ans
✗ 1. WP 25
✗ 2. LS 36
✓ 3. OR 25
✗ 4. MS 36

Question ID : **441009796853**
Option 1 ID : **4410093141413**
Option 2 ID : **4410093141414**
Option 3 ID : **4410093141412**
Option 4 ID : **4410093141411**

Q.2 Select the pair which follows the same pattern as that followed by the two set of pairs given below. Both pairs follow the same pattern.
ZMR : UHM
GMX : BHS

Ans
✗ 1. DSU : ZOQ
✓ 2. DSU : YNP
✗ 3. ZOQ : XMO
✗ 4. JYA : IXZ

Question ID : **441009790278**
Option 1 ID : **4410093115112**
Option 2 ID : **4410093115111**
Option 3 ID : **4410093115113**
Option 4 ID : **4410093115114**

Q.3 Select the pair which follows the same pattern as that followed by the two set of pairs given below. Both pairs follow the same pattern.
WAD–GKN
UYB–EIL

Ans
✗ 1. TWY–CGJ
✗ 2. TXA–CHJ
✗ 3. TWY–DHK
✓ 4. TXA–DHK

Question ID : **4410091486433**
Option 1 ID : **4410095872154**
Option 2 ID : **4410095872152**
Option 3 ID : **4410095872153**
Option 4 ID : **4410095872151**

QuickSarkari.com | WhatsApp Channel | Telegram: t.me/quick_sarkari

Q.4 Below are given two sets of numbers. In each set of numbers, a certain mathematical operation on the first number results in the second number. Similarly, certain mathematical operation on the second number results in the third number and so on. Which of the given options follows the same set of operations as in question?

(NOTE – A two / three-digit number cannot be broken into individual digits for operations e.g. if 37 is followed by 10, the operation cannot be 3+7 as a two-digit number cannot be broken into individual digits.)

5 – 11 – 31 – 60
8 – 17 – 49 – 96

Ans
✔ 1. 7 – 15 – 43 – 84
✘ 2. 6 – 13 – 27 – 52
✘ 3. 11 – 23 – 67 – 136
✘ 4. 9 – 19 – 55 – 104

Question ID : **441009588242**
Option 1 ID : **4410092308095**
Option 2 ID : **4410092308094**
Option 3 ID : **4410092308097**
Option 4 ID : **4410092308096**

Q.5 What will come in the place of '?' in the following equation, if '+' and '-' are interchanged and 'x' and '÷' are interchanged?
4 ÷ 8 + 13 - 15 × 1 = ?

Ans
✘ 1. 35
✘ 2. 36
✘ 3. 32
✔ 4. 34

Question ID : **4410091522498**
Option 1 ID : **4410096013117**
Option 2 ID : **4410096013115**
Option 3 ID : **4410096013116**
Option 4 ID : **4410096013114**

Q.6 In the following triad, each group of letters is related to the subsequent one following a certain logic. Select from the given options, the one that follows the same logic.

GOLE - OGLE - ELOG
LORD - OLRD - DROL

Ans
✘ 1. GOAD - OGAD - OADG
✘ 2. BIFE - BFIE - EFIB
✔ 3. LATE - ALTE - ETAL
✘ 4. BUST - UBST - TUSB

Question ID : **441009755854**
Option 1 ID : **4410092977412**
Option 2 ID : **4410092977410**
Option 3 ID : **4410092977409**
Option 4 ID : **4410092977411**

Quick Sarkari

Q.7 **What should come in place of ? in the given series based on the English alphabetical order?**
WYZ ACD EGH IKL ?

Ans
✗ 1. MNP
✗ 2. MNO
✓ 3. MOP
✗ 4. MPO

Question ID : **4410091486468**
Option 1 ID : **4410095872294**
Option 2 ID : **4410095872293**
Option 3 ID : **4410095872291**
Option 4 ID : **4410095872292**

Q.8 **Select the set in which the numbers are related in the same way as are the numbers of the given sets.**

(NOTE: Operations should be performed on the whole numbers, without breaking down the numbers into its constituent digits. E.g. 13 – Operations on 13 such as adding/subtracting/multiplying etc. to 13 can be performed. Breaking down 13 into 1 and 3 and then performing mathematical operations on 1 and 3 is not allowed.)

(195, 137, 79)
(264, 206, 148)

Ans
✗ 1. (282, 214, 166)
✗ 2. (228, 160, 122)
✗ 3. (246, 188, 140)
✓ 4. (213, 155, 97)

Question ID : **441009603841**
Option 1 ID : **4410092370481**
Option 2 ID : **4410092370482**
Option 3 ID : **4410092370484**
Option 4 ID : **4410092370483**

Q.9 **If the water source is placed along X-Y, as shown in the figure, which of the given options will be the water reflection of the given figure.**



Ans
✗ 1. 
✗ 2. 
✗ 3. 
✓ 4. 

Question ID : **4410091482963**
Option 1 ID : **4410095858819**
Option 2 ID : **4410095858818**
Option 3 ID : **4410095858820**
Option 4 ID : **4410095858817**

QuickSarkari.com | WhatsApp Channel | Telegram: t.me/quick_sarkari

Q.10 If 'A' stands for '÷', 'B' stands for '×', 'C' stands for '+' and 'D' stands for '−', what will come in place of the question mark '?' in the following equation?

114 C 9 B 4 D 90 A 10 = ?

Ans
✗ 1. 114
✓ 2. 141
✗ 3. 111
✗ 4. 140

Question ID : **441009553545**
Option 1 ID : **4410092169497**
Option 2 ID : **4410092169496**
Option 3 ID : **4410092169494**
Option 4 ID : **4410092169495**

Q.11 Based on the alphabetical order, three of the following four are alike in a certain way and thus form a group. Which is the one that does not belong to that group? (Note: The odd man out is not based on the number of consonants/vowels or their position in the letter cluster)

Ans
✓ 1. UXS
✗ 2. ORL
✗ 3. LOI
✗ 4. RUO

Question ID : **441009804901**
Option 1 ID : **4410093173727**
Option 2 ID : **4410093173729**
Option 3 ID : **4410093173730**
Option 4 ID : **4410093173728**

Q.12 Based on the alphabetical order, three of the following four are alike in a certain way and thus form a group. Which is the one that does not belong to that group? (Note: The odd man out is not based on the number of consonants/vowels or their position in the letter cluster)

Ans
✗ 1. AFN
✗ 2. CHP
✓ 3. DIT
✗ 4. BGO

Question ID : **441009792412**
Option 1 ID : **4410093123647**
Option 2 ID : **4410093123649**
Option 3 ID : **4410093123650**
Option 4 ID : **4410093123648**

QuickSarkari

Q.13 Based on the English alphabetical order, three of the following four letter cluster pairs are alike in a certain way and thus form a group. Which is the one that does not belong to that group?
(Note: The odd man out is not based on the number of consonants/vowels or their position in the letter cluster)

Ans
✔ 1. FH - FI
✘ 2. NQ - OR
✘ 3. LO - MP
✘ 4. IL - JM

Question ID : **441009787855**
Option 1 ID : **4410093105422**
Option 2 ID : **4410093105421**
Option 3 ID : **4410093105419**
Option 4 ID : **4410093105420**

Q.14 147 is related to 21 following a certain logic. Following the same logic, 126 is related to 18. To which of the following is 182 related, following the same logic?

(NOTE: Operations should be performed on the whole numbers, without breaking down the numbers into their constituent digits. E.g. 13 – Operations on 13 such as adding/subtracting/multiplying to 13 can be performed. Breaking down 13 into 1 and 3 and then performing mathematical operations on 1 and 3 is not allowed.)

Ans
✘ 1. 16
✔ 2. 26
✘ 3. 18
✘ 4. 22

Question ID : **441009591375**
Option 1 ID : **4410092320616**
Option 2 ID : **4410092320614**
Option 3 ID : **4410092320613**
Option 4 ID : **4410092320615**

Quick Sarkari

Q.15 Identify the figure given in the options which when put in place of ? will logically complete the series.

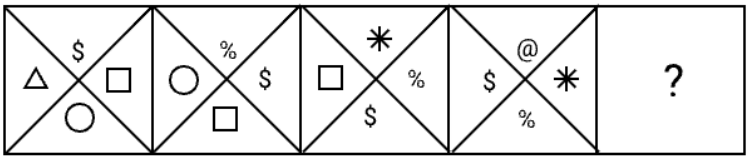

Ans

✗ 1.



✓ 2.

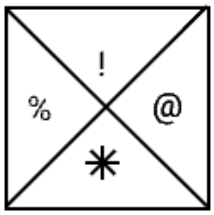

✗ 3.

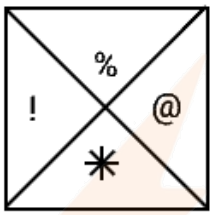

✗ 4.



Question ID : **4410091483019**
Option 1 ID : **4410095859040**
Option 2 ID : **4410095859038**
Option 3 ID : **4410095859037**
Option 4 ID : **4410095859039**

QuickSarkari.com | WhatsApp Channel | Telegram: t.me/quick_sarkari

Q.16 Below are given two sets of numbers. In each set of numbers, a certain mathematical operation on the first number results in the second number. Similarly, certain mathematical operation on the second number results in the third number and so on. Which of the given options follows the same set of operations as in question?

(NOTE – A two/three digit number cannot be broken into individual digits for operations e.g. if 37 is followed by 10, the operation cannot be 3+7 as a two digit number cannot be broken into individual digits.)

2 – 4 – 34 – 44, 8 – 16 – 46 – 56

Ans
✔ 1. 4 – 8 – 38 – 48
✘ 2. 4 – 6 – 23 – 44
✘ 3. 6 – 12 – 38 – 48
✘ 4. 6 – 12 – 32 – 48

Question ID : **441009588319**
Option 1 ID : **4410092308402**
Option 2 ID : **4410092308403**
Option 3 ID : **4410092308404**
Option 4 ID : **4410092308405**

Q.17 What should come in place of ? in the given series based on the English alphabetical order?

ZAC XBD VCE TDF ?

Ans
✘ 1. SEG
✔ 2. REG
✘ 3. REF
✘ 4. RFH

Question ID : **4410091259459**
Option 1 ID : **4410094970699**
Option 2 ID : **4410094970700**
Option 3 ID : **4410094970701**
Option 4 ID : **4410094970698**

Quick Sarkari

Q.18 Select the set in which the numbers are related in the same way as are the numbers of the given sets.

(NOTE: Operations should be performed on the whole numbers, without breaking down the numbers into its constituent digits. E.g. 13 – Operations on 13 such as adding/subtracting/multiplying etc. to 13 can be performed. Breaking down 13 into 1 and 3 and then performing mathematical operations on 1 and 3 is not allowed.)

(108, 45, 171)
(162, 59, 265)

Ans
✗ 1. (186, 68, 284)
✗ 2. (178, 64, 264)
✓ 3. (134, 51, 217)
✗ 4. (152, 76, 248)

Question ID : **441009603828**
Option 1 ID : **4410092370430**
Option 2 ID : **4410092370431**
Option 3 ID : **4410092370429**
Option 4 ID : **4410092370432**

Q.19 What will come in the place of '?' in the following equation, if '+' and '-' are interchanged and 'x' and '÷' are interchanged?
48 × 45 ÷ 30 + 27 - 32 = ?

Ans
✗ 1. 38
✗ 2. 35
✓ 3. 37
✗ 4. 39

Question ID : **4410091522508**
Option 1 ID : **4410096013157**
Option 2 ID : **4410096013156**
Option 3 ID : **4410096013154**
Option 4 ID : **4410096013155**

Q.20 If 1 is added to each odd digit and 2 is subtracted from each even digit in the number 4516738, what will be the difference of the digits which are third from the left and second from the right in the new number thus formed?

Ans
✗ 1. 0
✗ 2. 3
✗ 3. 1
✓ 4. 2

Question ID : **4410091522448**
Option 1 ID : **4410096012917**
Option 2 ID : **4410096012915**
Option 3 ID : **4410096012916**
Option 4 ID : **4410096012914**

Section : **General Awareness**

Q.1 **Under the Citizenship Act, 1955, in how many ways can a person lose their Indian Citizenship?**

Ans
✗ 1. Four ways: Renunciation, Termination, Deprivation, and Marriage
✓ 2. Three ways: Renunciation, Termination, and Deprivation
✗ 3. Five ways: By Absence, Treason, Renunciation, Termination, and Deprivation
✗ 4. Two ways: Deprivation and Naturalization in another country

Question ID : **4410091537786**
Option 1 ID : **4410096074404**
Option 2 ID : **4410096074403**
Option 3 ID : **4410096074406**
Option 4 ID : **4410096074405**

Q.2 **Which of the following sectors is the supplier of labour?**

Ans
✓ 1. Household
✗ 2. Foreign
✗ 3. Government
✗ 4. Firm

Question ID : **441009627358**
Option 1 ID : **4410092463584**
Option 2 ID : **4410092463587**
Option 3 ID : **4410092463586**
Option 4 ID : **4410092463585**

Q.3 **The Indian Parliament consists of the Lok Sabha, the Rajya Sabha, and which other integral component (as per Article 79 of the Constitution)?**

Ans
✗ 1. The Chief Justice of India
✓ 2. The President of India
✗ 3. The Vice-President of India
✗ 4. The Prime Minister

Question ID : **4410091542985**
Option 1 ID : **4410096094991**
Option 2 ID : **4410096094988**
Option 3 ID : **4410096094990**
Option 4 ID : **4410096094989**

Q.4 **Which plateau, located predominantly in Jharkhand, is distinguished by its rich mineral resources?**

Ans
✗ 1. Deccan Plateau
✗ 2. Bundelkhand Plateau
✗ 3. Malwa Plateau
✓ 4. Chota Nagpur Plateau

Question ID : **4410091582512**
Option 1 ID : **4410096251334**
Option 2 ID : **4410096251333**
Option 3 ID : **4410096251332**
Option 4 ID : **4410096251335**

Q.5 लोक अदालतों में अंतर्निहित सिद्धांत मुख्य रूप से निम्नलिखित में से कौन-सा है?

Ans
✗ 1. उच्च न्यायालयों द्वारा न्यायिक पुनर्विलोकन
✗ 2. विरोधात्मक जांच प्रणाली
✗ 3. उच्चतम न्यायालय पर्यवेक्षण
✓ 4. सुलह और समझौता

Question ID : **4410091540752**
Option 1 ID : **4410096086289**
Option 2 ID : **4410096086288**
Option 3 ID : **4410096086290**
Option 4 ID : **4410096086287**

Q.6 Which Indian state contains the largest extent of the Thar Desert within its boundaries?

Ans
✗ 1. Punjab
✗ 2. Haryana
✓ 3. Rajasthan
✗ 4. Gujarat

Question ID : **4410091582374**
Option 1 ID : **4410096250811**
Option 2 ID : **4410096250810**
Option 3 ID : **4410096250809**
Option 4 ID : **4410096250808**

Q.7 Which demographic indicator specifically relates the number of live births in a year to the number of women in the reproductive age group (15–49 years), rather than to the total population?

Ans
✗ 1. Net Reproduction Rate (NRR)
✗ 2. Total Fertility Rate (TFR)
✗ 3. Crude Birth Rate (CBR)
✓ 4. General Fertility Rate (GFR)

Question ID : **4410091587288**
Option 1 ID : **4410096270039**
Option 2 ID : **4410096270038**
Option 3 ID : **4410096270036**
Option 4 ID : **4410096270037**

QuickSarkari.com | WhatsApp Channel | Telegram: t.me/quick_sarkari

Q.8 1947 में विभाजन के बाद, निम्नलिखित में से किसने नौकरशाही का पुनर्गठन किया और रियासतों का एकीकरण किया?

Ans
✗ 1. जवाहरलाल नेहरू
✗ 2. महात्मा गांधी
✗ 3. राजेंद्र प्रसाद
✓ 4. सरदार वल्लभभाई पटेल

Question ID : **4410091567419**
Option 1 ID : **4410096190995**
Option 2 ID : **4410096190994**
Option 3 ID : **4410096190996**
Option 4 ID : **4410096190993**

Q.9 Who assisted Sardar Vallabhbhai Patel in integrating the princely states into the Indian Union?

Ans
✗ 1. C. Rajagopalachari
✗ 2. Rajendra Prasad
✓ 3. V.P. Menon
✗ 4. B.R. Ambedkar

Question ID : **4410091567494**
Option 1 ID : **4410096191291**
Option 2 ID : **4410096191290**
Option 3 ID : **4410096191289**
Option 4 ID : **4410096191288**

Q.10 Why was the Vernacular Press Act (1878) introduced by the British?

Ans
✗ 1. To provide financial aid to local publishers
✗ 2. To promote newspapers in Indian languages
✗ 3. To translate British laws into Indian languages
✓ 4. To suppress criticism of British policies in Indian-language newspapers

Question ID : **4410091555218**
Option 1 ID : **4410096143472**
Option 2 ID : **4410096143471**
Option 3 ID : **4410096143474**
Option 4 ID : **4410096143473**

Q.11 Which of the following taxes was earlier considered a 'paper tax' due to its low revenue yield?

Ans
✗ 1. Income tax
✗ 2. Excise duty
✗ 3. Corporation tax
✓ 4. Wealth tax

Question ID : **4410091543097**
Option 1 ID : **4410096095429**
Option 2 ID : **4410096095431**
Option 3 ID : **4410096095430**
Option 4 ID : **4410096095428**

Q.12 Which situation is most likely to produce strong winds between two locations?

Ans
✗ 1. Uniform humidity levels
✗ 2. Identical elevation conditions
✗ 3. Equal temperatures in both areas
✓ 4. A large pressure difference over a short distance

Question ID : **4410091580458**
Option 1 ID : **4410096243176**
Option 2 ID : **4410096243178**
Option 3 ID : **4410096243177**
Option 4 ID : **4410096243175**

Q.13 Which of the following social practices was banned by the Governor-General of India, Lord William Bentinck, in 1829?

Ans
✗ 1. Widow Remarriage
✗ 2. Child marriage
✓ 3. Sati
✗ 4. Female infanticide

Question ID : **4410091558764**
Option 1 ID : **4410096157447**
Option 2 ID : **4410096157446**
Option 3 ID : **4410096157448**
Option 4 ID : **4410096157445**

Q.14 Which part of the Northern Plains is made of newer, fertile alluvium and is renewed annually?

Ans
✗ 1. Bhabar
✗ 2. Bhangar
✓ 3. Khadar
✗ 4. Terai

Question ID : **4410091586135**
Option 1 ID : **4410096265589**
Option 2 ID : **4410096265588**
Option 3 ID : **4410096265591**
Option 4 ID : **4410096265590**

Q.15 What is the main objective of trade liberalisation in an open economy?

Ans
✗ 1. To promote domestic industries by imposing tariffs
✓ 2. To reduce barriers in international trade
✗ 3. To increase government revenue
✗ 4. To restrict foreign investment

Question ID : **441009626904**
Option 1 ID : **4410092461770**
Option 2 ID : **4410092461768**
Option 3 ID : **4410092461769**
Option 4 ID : **4410092461771**

Q.16 Who is known as the 'Grand Old Man of India'?

Ans
✗ 1. Gopal Krishna Gokhale
✗ 2. Surendranath Banerjee
✓ 3. Dadabhai Naoroji
✗ 4. W.C. Bonnerjee

Question ID : **4410091550269**
Option 1 ID : **4410096123539**
Option 2 ID : **4410096123542**
Option 3 ID : **4410096123540**
Option 4 ID : **4410096123541**

Q.17 The **Indian Councils Act of 1909** is popularly known as the Morley-Minto Reforms. Which principle was introduced by this Act?

Ans
✗ 1. Establishment of an All India Federation
✗ 2. Provincial Autonomy
✓ 3. Introduction of Separate Electorates for Muslims
✗ 4. Diarchy (Double Rule) at the Provincial level

Question ID : **4410091537724**
Option 1 ID : **4410096074157**
Option 2 ID : **4410096074156**
Option 3 ID : **4410096074155**
Option 4 ID : **4410096074158**

Q.18 The Primary Sector of employment involves activities based on which of the following?

Ans
✗ 1. Banking, insurance, and communication services
✓ 2. Extraction and use of natural resources from the earth
✗ 3. Manufacturing finished goods from raw materials
✗ 4. Processing information and software development

Question ID : **4410091543100**
Option 1 ID : **4410096095442**
Option 2 ID : **4410096095440**
Option 3 ID : **4410096095441**
Option 4 ID : **4410096095443**

Quick Sarkari

Q.19 यदि कोई अन्य देश भारत का हिस्सा बन जाता है, तो भारत सरकार उन व्यक्तियों को निर्दिष्ट कर सकती है जो भारत के नागरिक बन जाएंगे। नागरिकता प्राप्त करने की इस विधि को _____ कहा जाता है।

Ans
✔ 1. क्षेत्र समावेशन द्वारा नागरिकता
✘ 2. अधिवास द्वारा नागरिकता
✘ 3. अवजनन द्वारा नागरिकता
✘ 4. नागरिकीकरण द्वारा नागरिकता

Question ID : **4410091537793**
Option 1 ID : **4410096074431**
Option 2 ID : **4410096074432**
Option 3 ID : **4410096074434**
Option 4 ID : **4410096074433**

Q.20 Which of the following statements about GDP growth in India during 1980–91 and 2007–12 is correct?

Ans
✘ 1. GDP growth was lower during 2007-12 than during 1980-91
✔ 2. GDP growth increased from 5.6% in 1980–91 to 8.2% in 2007–12
✘ 3. There was no significant change in GDP growth between these periods
✘ 4. GDP growth was stable at 7% in both periods

Question ID : **441009511053**
Option 1 ID : **4410091999370**
Option 2 ID : **4410091999371**
Option 3 ID : **4410091999373**
Option 4 ID : **4410091999372**

Section : **General Awareness1**

Q.1 As per the National Institutional Ranking Framework (NIRF) 2025 released by the Ministry of Education, which institution has retained the 1st rank in the Overall category for the seventh consecutive year?

Ans
✘ 1. Indian Institute of Technology Bombay
✘ 2. Indian Institute of Technology Roorkee
✘ 3. Indian Institute of Technology Delhi
✔ 4. Indian Institute of Technology Madras

Question ID : **4410091580350**
Option 1 ID : **4410096242743**
Option 2 ID : **4410096242742**
Option 3 ID : **4410096242741**
Option 4 ID : **4410096242740**

Q.2 Which of the following countries hosted the 2025 Nobel Prize award ceremonies for Physics, Chemistry, and Medicine?

Ans
✗ 1. Norway
✗ 2. Finland
✗ 3. Denmark
✓ 4. Sweden

Question ID : **4410091580748**
Option 1 ID : **4410096244322**
Option 2 ID : **4410096244325**
Option 3 ID : **4410096244323**
Option 4 ID : **4410096244324**

Q.3 The Repealing and Amending Act, 2025, seeks to clean up the statute book by repealing outdated and redundant laws enacted between 1886 and 2023. How many such Acts have been removed under this legislation?

Ans
✓ 1. 71
✗ 2. 51
✗ 3. 60
✗ 4. 93

Question ID : **4410091570709**
Option 1 ID : **4410096203821**
Option 2 ID : **4410096203819**
Option 3 ID : **4410096203820**
Option 4 ID : **4410096203822**

Q.4 Identify the machine that measures electric current in a circuit.

Ans
✓ 1. Ammeter
✗ 2. Voltmeter
✗ 3. Resistor
✗ 4. Conductor

Question ID : **441009625371**
Option 1 ID : **4410092455616**
Option 2 ID : **4410092455617**
Option 3 ID : **4410092455619**
Option 4 ID : **4410092455618**

QuickSarkari

Q.5 **Sangam Literature** is a collective term for ancient Tamil writings that primarily flourished under the patronage of which ruling dynasties?

Ans
✗ 1. The Pallavas and the Chalukyas
✓ 2. The Cheras, Cholas, and Pandyas
✗ 3. The Mughals and the Delhi Sultans
✗ 4. The Satavahanas and the Guptas

Question ID : **4410091543131**
Option 1 ID : **4410096095565**
Option 2 ID : **4410096095564**
Option 3 ID : **4410096095566**
Option 4 ID : **4410096095567**

Q.6 In early February 2026, which technology did DRDO successfully demonstrate to enhance the performance of India's long-range air-to-air missiles?

Ans
✗ 1. Air-independent submarine propulsion
✗ 2. Liquid Bi-propellant rocket motor
✗ 3. Hypersonic glide vehicle system
✓ 4. Solid Fuel Ducted Ramjet

Question ID : **4410091580319**
Option 1 ID : **4410096242612**
Option 2 ID : **4410096242611**
Option 3 ID : **4410096242614**
Option 4 ID : **4410096242613**

Q.7 According to Mendel's Law of Inheritance, when two contrasting alleles are present in an organism, only one is expressed. This expressed allele is called ____.

Ans
✓ 1. Dominant Allele
✗ 2. Mutated Allele
✗ 3. Homozygous Allele
✗ 4. Recessive Allele

Question ID : **4410091543699**
Option 1 ID : **4410096097854**
Option 2 ID : **4410096097857**
Option 3 ID : **4410096097856**
Option 4 ID : **4410096097855**

QuickSarkari.com | WhatsApp Channel | Telegram: t.me/quick_sarkari

Q.8 **Which technology was handed over by DRDO under the Technology Development Fund (TDF) scheme in 2025 specifically for use in Fast Interceptor Craft?**

Ans
- ✗ 1. Novel lithium precursor recovery process
- ✗ 2. High-voltage power supply
- ✗ 3. Advanced VLF loop aerials
- ✓ 4. Indigenous waterjet propulsion system

Question ID : **4410091580324**
Option 1 ID : **4410096242632**
Option 2 ID : **4410096242633**
Option 3 ID : **4410096242631**
Option 4 ID : **4410096242634**

Q.9 **Where was the ICGS ATAL Fast Patrol Vessel launched on 29 July 2025?**

Ans
- ✗ 1. Paradip, Odisha
- ✗ 2. Kochi, Kerala
- ✓ 3. Vasco-da-Gama, Goa
- ✗ 4. Chennai, Tamil Nadu

Question ID : **4410091570829**
Option 1 ID : **4410096204295**
Option 2 ID : **4410096204294**
Option 3 ID : **4410096204296**
Option 4 ID : **4410096204297**

Q.10 **In 2025, which actor was originally part of the cast for Dhurandhar, but moved on to shoot for the mythological epic Mahakali?**

Ans
- ✗ 1. Abhishek Banerjee
- ✗ 2. Ahaan Panday
- ✗ 3. Farhan Akhtar
- ✓ 4. Akshaye Khanna

Question ID : **4410091533493**
Option 1 ID : **4410096056951**
Option 2 ID : **4410096056949**
Option 3 ID : **4410096056948**
Option 4 ID : **4410096056950**

Q.11 **In the November 2025 Bihar Assembly election, who achieved a landslide victory, winning 202 of 243 seats?**

Ans
- ✓ 1. National Democratic Alliance (NDA)
- ✗ 2. MVA - Maha Vikas Aghadi
- ✗ 3. INDIA Alliance (Indian National Developmental Inclusive Alliance)
- ✗ 4. UPA - United Progressive Alliance

Question ID : **4410091533893**
Option 1 ID : **4410096058779**
Option 2 ID : **4410096058782**
Option 3 ID : **4410096058781**
Option 4 ID : **4410096058780**

QuickSarkari

Q.12 Census 2027 represents a paradigmatic shift with several innovations, NOT including which of the following?

Ans
✗ 1. First-time use of Mobile Apps for data collection
✗ 2. Online self-enumeration for the public
✓ 3. Linking census data with Aadhaar
✗ 4. Census Monitoring & Management Portal

Question ID : **4410091533203**
Option 1 ID : **4410096055762**
Option 2 ID : **4410096055764**
Option 3 ID : **4410096055765**
Option 4 ID : **4410096055763**

Q.13 Vinod Gangadhar Lele is a famous _____ player.

Ans
✗ 1. Violin
✓ 2. Tabla
✗ 3. Sarod
✗ 4. Sitar

Question ID : **441009607859**
Option 1 ID : **4410092386556**
Option 2 ID : **4410092386555**
Option 3 ID : **4410092386553**
Option 4 ID : **4410092386554**

Q.14 Which of the following economic bodies has revised its FY 2025–26 GDP forecast upward from 6.5% to 6.8% in late 2025?

Ans
✓ 1. Reserve Bank of India (RBI)
✗ 2. Central Vigilance Commission
✗ 3. Security Exchange Board of India (SEBI)
✗ 4. Ministry of Corporate and Affairs (MoCA)

Question ID : **4410091533357**
Option 1 ID : **4410096056384**
Option 2 ID : **4410096056382**
Option 3 ID : **4410096056383**
Option 4 ID : **4410096056385**

Q.15 In October–November 2025, an important economic cooperation summit of Asia-Pacific leaders was held in which city?

Ans
✓ 1. Gyeongju
✗ 2. Tokyo
✗ 3. Dubai
✗ 4. Seoul

Question ID : **4410091580727**
Option 1 ID : **4410096244244**
Option 2 ID : **4410096244243**
Option 3 ID : **4410096244242**
Option 4 ID : **4410096244245**

Q.16 What is the process of a gas changing into a liquid called?

Ans
✔ 1. Condensation
✘ 2. Melting
✘ 3. Sublimation
✘ 4. Evaporation

Question ID : **441009625274**
Option 1 ID : **4410092455231**
Option 2 ID : **4410092455230**
Option 3 ID : **4410092455228**
Option 4 ID : **4410092455229**

Q.17 Which debut memoir won the Shakti Bhatt Prize in 2025?

Ans
✘ 1. Almost Brown: A Memoir by Charlotte Gill
✘ 2. Smoke and Ashes by Amitav Ghosh
✔ 3. The Lucky Ones by Zara Chowdhary
✘ 4. The Loneliness of Sonia and Sunny by Kiran Desai

Question ID : **4410091533471**
Option 1 ID : **4410096056849**
Option 2 ID : **4410096056848**
Option 3 ID : **4410096056847**
Option 4 ID : **4410096056846**

Q.18 To ensure systemic and organized disaster response, India has established a robust institutional framework. It does not include:

Ans
✔ 1. National Security Council (NSC)
✘ 2. District Disaster Management Authorities (DDMAs) only
✘ 3. National Disaster Management Authority (NDMA) only
✘ 4. State Disaster Management Authorities (SDMAs) only

Question ID : **4410091533007**
Option 1 ID : **4410096055013**
Option 2 ID : **4410096055012**
Option 3 ID : **4410096055010**
Option 4 ID : **4410096055011**

Q.19 As per the 10th Sustainable Development Report, what is the rank of India among 167 countries?

Ans
✘ 1. 86th Rank
✘ 2. 107th Rank
✔ 3. 99th Rank
✘ 4. 90th Rank

Question ID : **4410091533144**
Option 1 ID : **4410096055533**
Option 2 ID : **4410096055530**
Option 3 ID : **4410096055531**
Option 4 ID : **4410096055532**

Q.20 Who established the four Mathas (monastic centers) in India?

Ans
✔ 1. Adi Shankaracharya
✘ 2. Ramanuja
✘ 3. Nirmal Shankaracharya
✘ 4. Basavanagudi

Question ID : **441009632859**
Option 1 ID : **4410092485579**
Option 2 ID : **4410092485582**
Option 3 ID : **4410092485580**
Option 4 ID : **4410092485581**

Section : **Arithmetical and Numerical Ability**

Q.1 The difference between the compound interest (when interest is compounded annually) and the simple interest if ₹39,600 is deposited at 8% rate of interest per annum for 2 years is:8607

Ans
✔ 1. ₹253.44
✘ 2. ₹260.20
✘ 3. ₹262.65
✘ 4. ₹250.36

Question ID : **441009572181**
Option 1 ID : **4410092243844**
Option 2 ID : **4410092243846**
Option 3 ID : **4410092243847**
Option 4 ID : **4410092243845**

Q.2 What is the sum of the first 30 natural numbers?

Ans
✘ 1. 421
✘ 2. 436
✘ 3. 485
✔ 4. 465

Question ID : **4410091494231**
Option 1 ID : **4410095902528**
Option 2 ID : **4410095902529**
Option 3 ID : **4410095902531**
Option 4 ID : **4410095902530**

QuickSarkari

Q.3 On an online website, a product's negative rating caused its sales to drop. The ratio of the decrease in sales to the original sales is 4:5. What is the percentage decrease?

Ans
✗ 1. 20%
✗ 2. 90%
✗ 3. 40%
✓ 4. 80%

Question ID : **441009898138**
Option 1 ID : **4410093546623**
Option 2 ID : **4410093546625**
Option 3 ID : **4410093546622**
Option 4 ID : **4410093546624**

Q.4 Two traffic lights change their lights at regular intervals. One light changes every 45 seconds, and the other changes every 60 seconds. If they both change to green at the same time at 8:10 AM, after how many seconds will they both change to green at the same time again?

Ans
✗ 1. 120 seconds
✓ 2. 180 seconds
✗ 3. 60 seconds
✗ 4. 105 seconds

Question ID : **4410091498156**
Option 1 ID : **4410095917664**
Option 2 ID : **4410095917665**
Option 3 ID : **4410095917662**
Option 4 ID : **4410095917663**

Q.5 A merchant has 2442 kg of sugar. He sells a part of it at 24% profit and the remaining quantity at 35% profit. If his overall gain is 26%, how much sugar (in kg) was sold at 35% profit?1446

Ans
✗ 1. 452
✗ 2. 450
✗ 3. 439
✓ 4. 444

Question ID : **441009894759**
Option 1 ID : **4410093533107**
Option 2 ID : **4410093533108**
Option 3 ID : **4410093533109**
Option 4 ID : **4410093533106**

QuickSarkari.com | WhatsApp Channel | Telegram: t.me/quick_sarkari

Q.6 The simplified value of $\sqrt{50}+\sqrt{18}+\sqrt{8}$ is:

Ans
✔ 1. $10\sqrt{2}$
✗ 2. $9\sqrt{2}$
✗ 3. $8\sqrt{2}$
✗ 4. $12\sqrt{2}$

Question ID : **4410091512913**
Option 1 ID : **4410095975682**
Option 2 ID : **4410095975684**
Option 3 ID : **4410095975685**
Option 4 ID : **4410095975683**

Q.7 If $81^{0.11} = x$, $81^{0.6} = y$ and $x^z = y^6$, then the value of z is close to:

Ans
✗ 1. 33.05
✗ 2. 33.74
✔ 3. 32.73
✗ 4. 31.79

Question ID : **441009560429**
Option 1 ID : **4410092196985**
Option 2 ID : **4410092196986**
Option 3 ID : **4410092196983**
Option 4 ID : **4410092196984**

Q.8 21 litres of milk are drawn from a vessel full of milk and is then filled with water. This operation is performed two more times. The ratio of the quantity of milk now left in the vessel to that of the water is 64 : 936. What is the volume (in litres) of the vessel?1451

Ans
✗ 1. 34
✗ 2. 37
✔ 3. 35
✗ 4. 33

Question ID : **441009894764**
Option 1 ID : **4410093533129**
Option 2 ID : **4410093533127**
Option 3 ID : **4410093533126**
Option 4 ID : **4410093533128**

Quick Sarkari

Q.9 Evaluate $(17+5)\div(44\div4)\times6+3^3-4^2$.

Ans
✗ 1. 5
✗ 2. 39
✓ 3. 23
✗ 4. 28

Question ID : **4410091556626**
Option 1 ID : **4410096149078**
Option 2 ID : **4410096149081**
Option 3 ID : **4410096149079**
Option 4 ID : **4410096149080**

Q.10 **The table below shows the quarterly expenses (in thousands of ₹) for four departments of a company in the year 2023. By what percentage did the expenses of the Operations department increase from Quarter 1 (Q1) to Quarter 3 (Q3)? (Rounded off to two decimal places)**

Department	Q1	Q2	Q3	Q4
Human Resources	₹45	₹52	₹48	₹55
Marketing	₹80	₹95	₹110	₹105
Research & Dev	₹120	₹115	₹130	₹125
Operations	₹150	₹145	₹160	₹155

Ans
✗ 1. 8.35%
✗ 2. 5.56%
✗ 3. 7.33%
✓ 4. 6.67%

Question ID : **4410091494215**
Option 1 ID : **4410095902471**
Option 2 ID : **4410095902468**
Option 3 ID : **4410095902470**
Option 4 ID : **4410095902469**

Quick Sarkari

Q.11 In a test, B got 52 marks while A got 80 marks, out of 100 maximum marks. What percentage of A's marks was B's marks?

Ans
✗ 1. 88.89%
✗ 2. 85%
✗ 3. 153.85%
✓ 4. 65%

Question ID : **441009857273**
Option 1 ID : **4410093382067**
Option 2 ID : **4410093382066**
Option 3 ID : **4410093382065**
Option 4 ID : **4410093382064**

Q.12 The following graph illustrates the Production of a Factory (Units) from January to May.

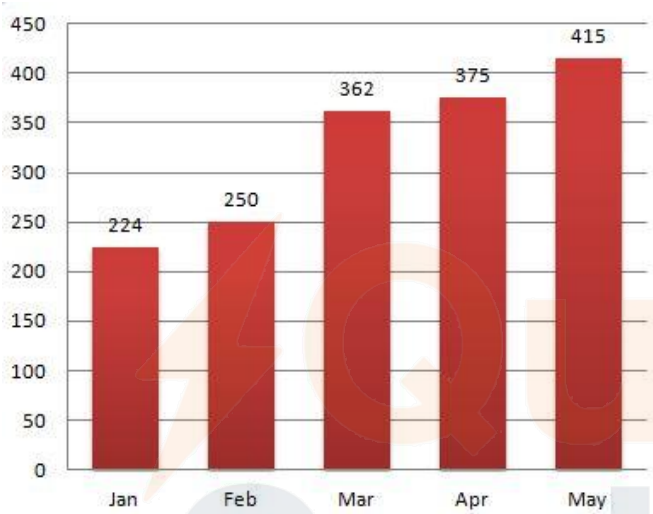

By how much did production (in units) increase from Feb to May?

Ans
✗ 1. 170
✗ 2. 160
✗ 3. 175
✓ 4. 165

Question ID : **4410091578242**
Option 1 ID : **4410096234055**
Option 2 ID : **4410096234053**
Option 3 ID : **4410096234056**
Option 4 ID : **4410096234054**

QuickSarkari.com | WhatsApp Channel | Telegram: t.me/quick_sarkari

Q.13 The difference between the compound interest (when interest is compounded annually) and the simple interest if ₹80,100 is deposited at 5% rate of interest per annum for 2 years is:8606

Ans
✗ 1. ₹190.35
✓ 2. ₹200.25
✗ 3. ₹203.75
✗ 4. ₹194.80

Question ID : **441009572180**
Option 1 ID : **4410092243843**
Option 2 ID : **4410092243840**
Option 3 ID : **4410092243842**
Option 4 ID : **4410092243841**

Q.14 What is the vulgar fraction of the mixed recurring decimal $2.5\overline{287}$?

Ans
✗ 1. $\frac{1669}{990}$
✗ 2. $\frac{3338}{660}$
✗ 3. $\frac{3338}{990}$
✓ 4. $\frac{1669}{660}$

Question ID : **4410091556553**
Option 1 ID : **4410096148786**
Option 2 ID : **4410096148789**
Option 3 ID : **4410096148788**
Option 4 ID : **4410096148787**

Q.15 How many prime numbers are there between 1 and 100?

Ans
✗ 1. 30
✗ 2. 20
✗ 3. 50
✓ 4. 25

Question ID : **4410091510795**
Option 1 ID : **4410095967239**
Option 2 ID : **4410095967237**
Option 3 ID : **4410095967236**
Option 4 ID : **4410095967238**

QuickSarkari.com | WhatsApp Channel | Telegram: t.me/quick_sarkari

Q.16 What is the HCF of 24 and 36?

Ans
✗ 1. 1
✗ 2. 6
✗ 3. 3
✓ 4. 12

Question ID : **4410091510962**
Option 1 ID : **4410095967890**
Option 2 ID : **4410095967892**
Option 3 ID : **4410095967891**
Option 4 ID : **4410095967893**

Q.17 If 26 kg of Rice priced at ₹55 per kg mixed with 24 kg of Rice priced at ₹58 per kg. What is the average price of whole mixture?

Ans
✗ 1. ₹55.82 per kg
✗ 2. ₹56.08 per kg
✗ 3. ₹56.92 per kg
✓ 4. ₹56.44 per kg

Question ID : **4410091544192**
Option 1 ID : **4410096099865**
Option 2 ID : **4410096099866**
Option 3 ID : **4410096099868**
Option 4 ID : **4410096099867**

Q.18 Find the simple interest (in ₹) on ₹3000 as a sum borrowed at 5% per year rate of interest for 4 years.1702

Ans
✗ 1. 560
✗ 2. 640
✗ 3. 540
✓ 4. 600

Question ID : **441009852984**
Option 1 ID : **4410093364911**
Option 2 ID : **4410093364909**
Option 3 ID : **4410093364910**
Option 4 ID : **4410093364908**

Quick Sarkari

Q.19 A company has two divisions, A and B. Division A employs 24 people with an average salary of ₹28000, while Division B employs 26 people with an average salary of ₹32000. What is the overall average salary of all employees in the company?

Ans
✗ 1. ₹31860
✓ 2. ₹30080
✗ 3. ₹31020
✗ 4. ₹30640

Question ID : **4410091544185**
Option 1 ID : **4410096099842**
Option 2 ID : **4410096099839**
Option 3 ID : **4410096099841**
Option 4 ID : **4410096099840**

Q.20 Simplify the following expression.

$\left(5^3+\left(\frac{1}{2}\right)^{-2}\right)\div 3^2$

Ans
✓ 1. $\frac{43}{3}$
✗ 2. $\frac{24}{7}$
✗ 3. 15.56
✗ 4. 0

Question ID : **4410091498236**
Option 1 ID : **4410095917965**
Option 2 ID : **4410095917964**
Option 3 ID : **4410095917963**
Option 4 ID : **4410095917962**

Section : **Arithmetical and Numerical Ability1**

Q.1 Divide ₹23,800 into three parts in such a way that half of the first part, one-fourth of the second part and one-eighth of the third part are equal. What is the value (in ₹) of the first part?7679

Ans
✗ 1. 3,700
✓ 2. 3,400
✗ 3. 3,500
✗ 4. 3,100

Question ID : **441009546006**
Option 1 ID : **4410092139421**
Option 2 ID : **4410092139420**
Option 3 ID : **4410092139422**
Option 4 ID : **4410092139423**

QuickSarkari.com | WhatsApp Channel | Telegram: t.me/quick_sarkari

Q.2 A and B complete a work in 3 days. If A alone can do it in 6 days, then B alone can do it in_____(days).4083

Ans
✗ 1. 8
✓ 2. 6
✗ 3. 7
✗ 4. 5

Question ID : **441009897396**
Option 1 ID : **4410093543656**
Option 2 ID : **4410093543654**
Option 3 ID : **4410093543655**
Option 4 ID : **4410093543657**

Q.3 A solid sphere of radius 6 cm is melted and recast into small spherical balls of radius 2 cm each. How many small balls will be formed?

Ans
✗ 1. 9
✗ 2. 3
✗ 3. 81
✓ 4. 27

Question ID : **4410091515909**
Option 1 ID : **4410095987003**
Option 2 ID : **4410095987002**
Option 3 ID : **4410095987001**
Option 4 ID : **4410095987004**

Q.4 A cylinder of radius 6 cm and height 15 cm is melted and recast into small cones each of radius 3 cm and height 5 cm. How many cones are obtained?

Ans
✗ 1. 30
✗ 2. 34
✓ 3. 36
✗ 4. 32

Question ID : **4410091515894**
Option 1 ID : **4410095986944**
Option 2 ID : **4410095986942**
Option 3 ID : **4410095986943**
Option 4 ID : **4410095986941**

QuickSarkari

Q.5 The list price of a television set is ₹13,000. It is sold to a retailer after two successive discounts of 45% and 8%. The retailer wants to earn a profit of 50% on his cost price after allowing a 25% discount (on its new list price) to the customer. At what price should he list the television set?

Ans
✔ 1. ₹13,156
✘ 2. ₹13,280
✘ 3. ₹13,174
✘ 4. ₹13,298

Question ID : **441009915764**
Option 1 ID : **4410093617307**
Option 2 ID : **4410093617308**
Option 3 ID : **4410093617310**
Option 4 ID : **4410093617309**

Q.6 Mr. X drives a car at a speed of 54 km/h. How much time will he take to cover a distance of 1620 meters?

Ans
✘ 1. 84 seconds
✔ 2. 108 seconds
✘ 3. 98 seconds
✘ 4. 78 seconds

Question ID : **4410091566410**
Option 1 ID : **4410096187045**
Option 2 ID : **4410096187047**
Option 3 ID : **4410096187046**
Option 4 ID : **4410096187044**

Q.7 What is the mean proportional (geometric mean) between 196 and 576?

Ans
✘ 1. 312
✘ 2. 364
✘ 3. 386
✔ 4. 336

Question ID : **4410091512936**
Option 1 ID : **4410095975775**
Option 2 ID : **4410095975777**
Option 3 ID : **4410095975776**
Option 4 ID : **4410095975774**

QuickSarkari.com | WhatsApp Channel | Telegram: t.me/quick_sarkari

Q.8 Shekhar purchased a gas stove at 7/10 of the marked price and sold it at 9% more than its marked price. Find his gain percentage.

Ans
1. $36\frac{2}{7}\%$
2. $55\frac{5}{7}\%$
3. $59\frac{3}{7}\%$
4. $45\frac{1}{7}\%$

Question ID : **4410091529160**
Option 1 ID : **4410096039748**
Option 2 ID : **4410096039750**
Option 3 ID : **4410096039749**
Option 4 ID : **4410096039747**

Q.9 A small cube of side 4 cm is cut out from a corner of a large wooden cuboid (imagine a cuboid with a missing cube at one corner). The dimensions of the cuboid are 15 cm by 12 cm by 10 cm. Find the total surface area of the remaining solid.

Ans
1. 800 cm2
2. 750 cm2
3. 900 cm2
4. 850 cm2

Question ID : **4410091499586**
Option 1 ID : **4410095923247**
Option 2 ID : **4410095923246**
Option 3 ID : **4410095923249**
Option 4 ID : **4410095923248**

Q.10 A shopkeeper bought six identical mobile phones for a total sum of ₹12,000, and sold two of them for a total price of ₹12,000. Find the percentage of gain made by the shopkeeper in the sale of the two phones.

Ans
1. 200%
2. 202%
3. 201%
4. 197%

Question ID : **441009577781**
Option 1 ID : **4410092266250**
Option 2 ID : **4410092266253**
Option 3 ID : **4410092266252**
Option 4 ID : **4410092266251**

Q.11 A cone has a radius of 3 cm and a height of 9 cm. Its volume is:

Ans
✗ 1. 22π cm3
✗ 2. 81π cm3
✓ 3. 27π cm3
✗ 4. 54π cm3

Question ID : **4410091514785**
Option 1 ID : **4410095982569**
Option 2 ID : **4410095982571**
Option 3 ID : **4410095982568**
Option 4 ID : **4410095982570**

Q.12 Three numbers are in the ratio 2:3:5. The numbers are increased by 10%, 20%, and 30%, respectively. Find the new ratio.

Ans
✗ 1. 3:7:17
✓ 2. 22:36:65
✗ 3. 11:27:37
✗ 4. 1:2:3

Question ID : **4410091498417**
Option 1 ID : **4410095918688**
Option 2 ID : **4410095918690**
Option 3 ID : **4410095918689**
Option 4 ID : **4410095918687**

Q.13 Two people, A and B, can complete a job in 12 days and 24 days, respectively. If they work together, how many days will it take to finish the job?

Ans
✗ 1. 10 days
✗ 2. 4 days
✓ 3. 8 days
✗ 4. 6 days

Question ID : **4410091513028**
Option 1 ID : **4410095976144**
Option 2 ID : **4410095976143**
Option 3 ID : **4410095976145**
Option 4 ID : **4410095976142**

Q.14 A right circular cone has a slant height of 17 cm and a height of 15 cm. Find the volume of the cone. (Use π=3.14)

Ans
✗ 1. 1058 cm3
✗ 2. 1121.4 cm3
✗ 3. 1000 cm3
✓ 4. 1004.8 cm3

Question ID : **4410091499548**
Option 1 ID : **4410095923100**
Option 2 ID : **4410095923101**
Option 3 ID : **4410095923098**
Option 4 ID : **4410095923099**

Quick Sarkari

Q.15 Two numbers are in the ratio 5 : 9. If five is subtracted from the first number and three is added to the second number, the ratio becomes 1 : 2. Find the sum of the two numbers.

Ans
✔ 1. 182
✘ 2. 169
✘ 3. 165
✘ 4. 52

Question ID : **4410091529218**
Option 1 ID : **4410096039973**
Option 2 ID : **4410096039971**
Option 3 ID : **4410096039972**
Option 4 ID : **4410096039974**

Q.16 A rectangular stage 75.88 m long and 67.48 m broad has to be paved exactly with square tiles all of the same size. Find the least number of square tiles required.

Ans
✔ 1. 65,311
✘ 2. 60,750
✘ 3. 66,780
✘ 4. 62,715

Question ID : **4410091540852**
Option 1 ID : **4410096086678**
Option 2 ID : **4410096086675**
Option 3 ID : **4410096086676**
Option 4 ID : **4410096086677**

Q.17 A regular hexagon is inscribed in a circle with a radius of 8 cm. Find the area (in cm^2) of the hexagon.

Ans
✘ 1. $48\sqrt{3}$
✘ 2. $72\sqrt{3}$
✔ 3. $96\sqrt{3}$
✘ 4. $108\sqrt{3}$

Question ID : **4410091566420**
Option 1 ID : **4410096187084**
Option 2 ID : **4410096187085**
Option 3 ID : **4410096187086**
Option 4 ID : **4410096187087**

QuickSarkari.com | WhatsApp Channel | Telegram: t.me/quick_sarkari

Q.18 A train travelling at a uniform speed crosses a platform of length 250 meters in 30 seconds and passes a telegraph pole in 10 seconds. Find the length of the train.

Ans
✗ 1. 140 meters
✓ 2. 125 meters
✗ 3. 130 meters
✗ 4. 135 meters

Question ID : **4410091498552**
Option 1 ID : **4410095919132**
Option 2 ID : **4410095919129**
Option 3 ID : **4410095919130**
Option 4 ID : **4410095919131**

Q.19 A closed box's external measurements are 32 cm, 28 cm, and 25 cm. What is the volume of wood used to create the box if it is built of wood that is one centimetre thick?

Ans
✗ 1. 4470 cm3
✓ 2. 4460 cm3
✗ 3. 4450 cm3
✗ 4. 4440 cm3

Question ID : **4410091578198**
Option 1 ID : **4410096233870**
Option 2 ID : **4410096233869**
Option 3 ID : **4410096233868**
Option 4 ID : **4410096233867**

Q.20 An item has a marked price of ₹1,200 and is available at a 15.5% discount. Find the selling price of the item.

Ans
✗ 1. ₹1,100
✓ 2. ₹1,014
✗ 3. ₹1,000
✗ 4. ₹1,088

Question ID : **4410091498391**
Option 1 ID : **4410095918586**
Option 2 ID : **4410095918584**
Option 3 ID : **4410095918583**
Option 4 ID : **4410095918585**

Section : **English Language and Comprehension**

QuickSarkari.com | WhatsApp Channel | Telegram: t.me/quick_sarkari

Q.1 Choose the most appropriate option to complete the sentence.

To protect the environment, many people now _____ reusable bags.

Ans
1. melt
2. use
3. exist
4. float

Question ID : **4410091509006**
Option 1 ID : **4410095960698**
Option 2 ID : **4410095960699**
Option 3 ID : **4410095960701**
Option 4 ID : **4410095960700**

Q.2 Choose the option that best replaces the underlined text.

The young poet gained fame for his short and witty sayings that carried deep meanings.

Ans
1. maxims
2. epigrams
3. quotations
4. proverbs

Question ID : **4410091506700**
Option 1 ID : **4410095951151**
Option 2 ID : **4410095951152**
Option 3 ID : **4410095951153**
Option 4 ID : **4410095951150**

Q.3 In the following question, you are required to fill in the blank by choosing the word that best completes the sentence.

The teacher's explanation of the lesson was very _____, so all the students understood it easily.

Ans
1. abstruse
2. arcane
3. lucid
4. opaque

Question ID : **4410091626983**
Option 1 ID : **4410096426242**
Option 2 ID : **4410096426245**
Option 3 ID : **4410096426243**
Option 4 ID : **4410096426244**

QuickSarkari.com | WhatsApp Channel | Telegram: t.me/quick_sarkari

Q.4 In a situation where a regular, repeating path is followed by the Earth as it moves around the Sun, which one-word term correctly expresses this path?

Ans
✗ 1. Revolution
✗ 2. Axis
✓ 3. Orbit
✗ 4. Rotation

Question ID : **4410091629203**
Option 1 ID : **4410096434913**
Option 2 ID : **4410096434911**
Option 3 ID : **4410096434912**
Option 4 ID : **4410096434910**

Q.5 Select a specific word from the options below to replace the underlined group of words in the following sentence.

The philosopher argued for a system of government where the state holds total control over every aspect of public and private life.

Ans
✗ 1. Autocracy
✗ 2. Authoritarianism
✓ 3. Totalitarianism
✗ 4. Despotism

Question ID : **4410091627083**
Option 1 ID : **4410096426641**
Option 2 ID : **4410096426638**
Option 3 ID : **4410096426640**
Option 4 ID : **4410096426639**

Q.6 In the given question, a statement divided into different segments is given. Rearrange all the segments to form a coherent statement.

From rare flowers (P) / The perfume was made (Q) / Found deep (R) / Of South America (S) / In the tropical forests (T)

Ans
✓ 1. QPRTS
✗ 2. STRQP
✗ 3. PTSQR
✗ 4. PQRST

Question ID : **4410091500318**
Option 1 ID : **4410095926138**
Option 2 ID : **4410095926139**
Option 3 ID : **4410095926137**
Option 4 ID : **4410095926136**

QuickSarkari.com | WhatsApp Channel | Telegram: t.me/quick_sarkari

Q.7 **Choose the option that best replaces the underlined text.**

The spy was executed for <u>betrayal of their country.</u>

Ans
✗ 1. conspiracy
✗ 2. mutiny
✓ 3. treason
✗ 4. sedition

Question ID : **4410091506677**
Option 1 ID : **4410095951060**
Option 2 ID : **4410095951061**
Option 3 ID : **4410095951058**
Option 4 ID : **4410095951059**

Q.8 **Fill in the blank with the most appropriate option.**
The project was delayed _____ the workers went on strike for several weeks.

Ans
✓ 1. because
✗ 2. though
✗ 3. although
✗ 4. unless

Question ID : **4410091506820**
Option 1 ID : **4410095951639**
Option 2 ID : **4410095951640**
Option 3 ID : **4410095951638**
Option 4 ID : **4410095951641**

Q.9 **Choose the option which uses the correct form of the future tense for the given sentence.**

I will calling you as soon as I reach the station.

Ans
✗ 1. I shall calling you as soon as I reach the station.
✗ 2. I am call you as soon as I reach the station.
✓ 3. I will call you as soon as I reach the station.
✗ 4. I will be call you as soon as I reach the station.

Question ID : **4410091620942**
Option 1 ID : **4410096402575**
Option 2 ID : **4410096402576**
Option 3 ID : **4410096402573**
Option 4 ID : **4410096402574**

QuickSarkari.com | WhatsApp Channel | Telegram: t.me/quick_sarkari

Q.10 Select the most appropriate option to fill in the blank.

Out of all the candidates, Priya answered the questions in the _____ manner.

Ans
1. more quicker
2. quicker
3. quickest
4. most quicker

Question ID : **4410091508375**
Option 1 ID : **4410095958108**
Option 2 ID : **4410095958106**
Option 3 ID : **4410095958105**
Option 4 ID : **4410095958107**

Q.11 Select a specific word from the options below to replace the underlined group of words in the following sentence.

The treaty was an agreement between two countries or parties to stop fighting.

Ans
1. Alliance
2. Contract
3. Pact
4. Armistice

Question ID : **4410091627018**
Option 1 ID : **4410096426380**
Option 2 ID : **4410096426378**
Option 3 ID : **4410096426381**
Option 4 ID : **4410096426379**

Q.12 Select the most appropriate option that can substitute the underlined segment in the given sentence.

The use of mild and pleasant words instead of harsh ones is a mark of politeness.

Ans
1. understatement
2. exaggeration
3. euphemism
4. sarcasm

Question ID : **4410091490267**
Option 1 ID : **4410095887076**
Option 2 ID : **4410095887073**
Option 3 ID : **4410095887075**
Option 4 ID : **4410095887074**

QuickSarkari.com | WhatsApp Channel | Telegram: t.me/quick_sarkari

Q.13 Choose the most suitable option to complete the sentence meaningfully.

Her leadership style was not authoritarian but ____, valuing collaboration and input from every team member.

Ans
✗ 1. weak
✗ 2. flexible
✓ 3. democratic
✗ 4. lenient

Question ID : **4410091627141**
Option 1 ID : **4410096426873**
Option 2 ID : **4410096426872**
Option 3 ID : **4410096426870**
Option 4 ID : **4410096426871**

Q.14 Choose the most suitable option to complete the sentence meaningfully.

By the time we arrived at the cinema, the movie ____.

Ans
✗ 1. starts
✗ 2. started
✗ 3. has started
✓ 4. had started

Question ID : **4410091627177**
Option 1 ID : **4410096427017**
Option 2 ID : **4410096427014**
Option 3 ID : **4410096427015**
Option 4 ID : **4410096427016**

Q.15 In the given question, a statement divided into different segments is given. Rearrange all the segments to form a coherent statement.

promotional materials for the (O)/ a market-leading graphic design company (P)/, specialising in producing (Q)/ diamond D-ZINE is (R)/ international film and music industries (S)

Ans
✗ 1. SRPQO
✗ 2. RSPQO
✓ 3. RPQOS
✗ 4. OPQRS

Question ID : **4410091416417**
Option 1 ID : **4410095594391**
Option 2 ID : **4410095594389**
Option 3 ID : **4410095594390**
Option 4 ID : **4410095594392**

QuickSarkari.com | WhatsApp Channel | Telegram: t.me/quick_sarkari

Q.16 Choose the option that best replaces the underlined text.

The speech was so tedious and boring that it became a long talk on a single subject.

Ans
✔ 1. monologue
✘ 2. dialogue
✘ 3. conversation
✘ 4. lecture

Question ID : **4410091506622**
Option 1 ID : **4410095950842**
Option 2 ID : **4410095950840**
Option 3 ID : **4410095950839**
Option 4 ID : **4410095950841**

Q.17 The parts labeled (OPQRS) form a single sentence when rearranged correctly. Choose the correct sequence to make a meaningful sentence.

O: the first modern Olympic Games
P: were held
Q: in Athens,
R: in the year
S: 1896

Ans
✔ 1. OPQRS
✘ 2. POQRS
✘ 3. QPORS
✘ 4. OPRSQ

Question ID : **4410091626915**
Option 1 ID : **4410096425987**
Option 2 ID : **4410096425986**
Option 3 ID : **4410096425989**
Option 4 ID : **4410096425988**

Q.18 In the given question, a statement divided into different segments is given. The first segment (A) is fixed. Rearrange the other segments to form a coherent statement.

The poet's words (A)/ of those who had (P) / lost faith in beauty (Q) / touched the hearts (R) / and in love (S)

Ans
✘ 1. PQRS
✘ 2. RSQP
✔ 3. RPQS
✘ 4. QRSP

Question ID : **4410091498084**
Option 1 ID : **4410095917388**
Option 2 ID : **4410095917390**
Option 3 ID : **4410095917389**
Option 4 ID : **4410095917391**

QuickSarkari.com | WhatsApp Channel | Telegram: t.me/quick_sarkari

Q.19 The following sentences can be rearranged to explain a basic biological process. The first and last sentences of the paragraph are fixed. Select the correct order for the middle sentences (A, B, C, D, E).

Fixed First Sentence: Photosynthesis is the process by which plants convert light energy into chemical energy.
(A) These sugars provide the plant with the energy it needs to grow.
(B) This reaction requires carbon dioxide from the air and water from the soil.
(C) The process primarily occurs in the chloroplasts of plant cells.
(D) Using sunlight as the power source, the plant transforms these inputs.
(E) The final products of this transformation are glucose (a sugar) and oxygen.
Fixed Last Sentence: Oxygen, released as a byproduct, is essential for most life on Earth.

Ans
✔ 1. CBDEA
✘ 2. EACBD
✘ 3. BDCAE
✘ 4. DEACB

Question ID : **4410091626756**
Option 1 ID : **4410096425385**
Option 2 ID : **4410096425386**
Option 3 ID : **4410096425384**
Option 4 ID : **4410096425387**

Q.20 In the given question, a sentence is divided into different phrases and the first phrase (S1) is fixed. Choose the most appropriate order from the options given which best rearranges the remaining phrases to form a coherent sentence.
S1: When the earthquake struck
P: immediate medical assistance to those severely injured
Q: survivors from the debris and providing
R: teams worked tirelessly for days, pulling
S: the city without warning, the rescue

Ans
✘ 1. RPSQ
✔ 2. SRQP
✘ 3. PSRQ
✘ 4. QSPR

Question ID : **4410091506767**
Option 1 ID : **4410095951419**
Option 2 ID : **4410095951420**
Option 3 ID : **4410095951418**
Option 4 ID : **4410095951421**

Section : **English Language and Comprehension1**

QuickSarkari.com | WhatsApp Channel | Telegram: t.me/quick_sarkari

Q.1 **Read the sentence given below and identify the incorrectly spelt word.**
During the catastrophic storm, the sailors relied on rudimentary tools to navigate the trecherous waters.

Ans
✗ 1. navigate
✗ 2. rudimentary
✓ 3. trecherous
✗ 4. catastrophic

Question ID : **4410091506920**
Option 1 ID : **4410095952060**
Option 2 ID : **4410095952059**
Option 3 ID : **4410095952061**
Option 4 ID : **4410095952058**

Q.2 **Complete the direct speech in the following sentence correctly.**

As the final bell rang, the teacher announced to the class, "_____"

Ans
✗ 1. Their holiday begins tomorrow.
✗ 2. The class would begin their holiday tomorrow.
✗ 3. That your holiday begins tomorrow.
✓ 4. Your holiday begins tomorrow!

Question ID : **4410091626628**
Option 1 ID : **4410096424886**
Option 2 ID : **4410096424884**
Option 3 ID : **4410096424887**
Option 4 ID : **4410096424885**

Q.3 **Select the option that rectifies the INCORRECTLY spelt word in the given sentence.**

The occurrance of such mischievous acts caused embarrassment to the secretary and the committee.

Ans
✗ 1. comittee
✓ 2. occurrence
✗ 3. mischievious
✗ 4. embarassment

Question ID : **4410091187461**
Option 1 ID : **4410094684029**
Option 2 ID : **4410094684026**
Option 3 ID : **4410094684027**
Option 4 ID : **4410094684028**

QuickSarkari.com | WhatsApp Channel | Telegram: t.me/quick_sarkari

Q.4 **Choose the option that expresses the given sentence in active voice.**

Strict disciplinary measures were imposed by the administration to maintain order on campus.

Ans
✗ 1. Order on campus was maintained through strict disciplinary measures by the administration.

✓ 2. The administration imposed strict disciplinary measures to maintain order on campus.

✗ 3. The administration had imposed strict disciplinary measures to maintain order on campus.

✗ 4. The administration was imposing strict disciplinary measures to maintain order on campus.

Question ID : **4410091509371**
Option 1 ID : **4410095962146**
Option 2 ID : **4410095962145**
Option 3 ID : **4410095962147**
Option 4 ID : **4410095962144**

Q.5 **Rectify the following sentence by choosing the option that contains the correct spellings of the incorrectly spelled words.**
His unpridectable behaviour and unacceptable remarks caused controversy among the commitee members.

Ans
✗ 1. unacceptible, controvirsy

✗ 2. unpredictible, controvirsy

✓ 3. unpredictable, committee

✗ 4. unaccepteable, comittee

Question ID : **4410091413633**
Option 1 ID : **4410095583536**
Option 2 ID : **4410095583537**
Option 3 ID : **4410095583535**
Option 4 ID : **4410095583538**

Q.6 **Select the correct passive form of the given sentence.**

The gardener waters the plants every morning.

Ans
✗ 1. The gardener is watered by the plants every morning.

✓ 2. The plants are watered by the gardener every morning.

✗ 3. The plants were watered by the gardener every morning.

✗ 4. The plants have been watered by the gardener every morning.

Question ID : **441009478712**
Option 1 ID : **4410091870200**
Option 2 ID : **4410091870197**
Option 3 ID : **4410091870198**
Option 4 ID : **4410091870199**

QuickSarkari.com | WhatsApp Channel | Telegram: t.me/quick_sarkari

Q.7 **Choose the correct form of present tense for the following sentence.**

The lead scientist, who usually _____ fieldwork, _____ data in the lab due to the rainy season.

Ans
✗ 1. is overseeing; analyzes
✓ 2. oversees; is currently analyzing
✗ 3. oversaw; is analyzing
✗ 4. oversees; analyzed

Question ID : **4410091626614**
Option 1 ID : **4410096424829**
Option 2 ID : **4410096424828**
Option 3 ID : **4410096424830**
Option 4 ID : **4410096424831**

Q.8 **Choose the option that presents a grammatically correct sentence in the passive voice.**

Ans
✗ 1. The confidential files should be keep in the locked cabinet.
✓ 2. All the invitations for the event had been sent out last week.
✗ 3. The ancient manuscript has being carefully restored by the archivists.
✗ 4. A standing ovation was gave to the performers by the audience.

Question ID : **4410091626654**
Option 1 ID : **4410096424986**
Option 2 ID : **4410096424985**
Option 3 ID : **4410096424984**
Option 4 ID : **4410096424987**

Q.9 **Select the most appropriate option that rectifies the incorrectly spelt word in the given sentence.**

The professor appreciated her dilligence and punctuality.

Ans
✗ 1. Dilligance
✗ 2. Dilegence
✗ 3. Dillagence
✓ 4. Diligence

Question ID : **441009198515**
Option 1 ID : **441009781606**
Option 2 ID : **441009781608**
Option 3 ID : **441009781605**
Option 4 ID : **441009781607**

QuickSarkari.com | WhatsApp Channel | Telegram: t.me/quick_sarkari

Q.10 **Select the INCORRECTLY spelt word**

Ans
✗ 1. Vintage

✗ 2. Veterinary

✓ 3. Versatilety

✗ 4. Vigilance

Question ID : **4410091571492**
Option 1 ID : **4410096206992**
Option 2 ID : **4410096206990**
Option 3 ID : **4410096206989**
Option 4 ID : **4410096206991**

Comprehension:

Read the following passage and answer the questions given below.

In the highlands of Arunava Plateau, archaeologists recently uncovered the remains of an ancient observatory built nearly two thousand years ago. The structure, made of precisely aligned stone pillars, was positioned to track the movements of the sun and stars with remarkable accuracy. Researchers believe that the civilization inhabiting the plateau used the observatory not only for understanding seasonal changes but also for guiding agricultural decisions and ceremonial events. Among the findings were clay tablets marked with circular patterns, suggesting an early attempt at recording celestial cycles. What surprised scholars most was the complexity of the site's design, which indicated knowledge comparable to other advanced ancient cultures. The discovery has drawn historians, astronomers, and environmental scientists, all eager to learn how early societies blended astronomy with daily life. As further excavations continue, the observatory is expected to reshape existing theories about scientific development in isolated mountain regions and highlight the global nature of humanity's early search for understanding the skies.

SubQuestion No : 11

Q.11 **What did archaeologists recently discover on the Arunava Plateau?**

Ans
✓ 1. An ancient observatory built with stone pillars

✗ 2. A lost village destroyed by landslides

✗ 3. A network of underground trade tunnels

✗ 4. A buried royal palace with gold ornaments

Question ID : **4410091507020**
Option 1 ID : **4410095952479**
Option 2 ID : **4410095952481**
Option 3 ID : **4410095952480**
Option 4 ID : **4410095952478**

QuickSarkari.com | WhatsApp Channel | Telegram: t.me/quick_sarkari

Comprehension:

Read the following passage and answer the questions given below.

In the highlands of Arunava Plateau, archaeologists recently uncovered the remains of an ancient observatory built nearly two thousand years ago. The structure, made of precisely aligned stone pillars, was positioned to track the movements of the sun and stars with remarkable accuracy. Researchers believe that the civilization inhabiting the plateau used the observatory not only for understanding seasonal changes but also for guiding agricultural decisions and ceremonial events. Among the findings were clay tablets marked with circular patterns, suggesting an early attempt at recording celestial cycles. What surprised scholars most was the complexity of the site's design, which indicated knowledge comparable to other advanced ancient cultures. The discovery has drawn historians, astronomers, and environmental scientists, all eager to learn how early societies blended astronomy with daily life. As further excavations continue, the observatory is expected to reshape existing theories about scientific development in isolated mountain regions and highlight the global nature of humanity's early search for understanding the skies.

SubQuestion No : 12

Q.12 What tone does the passage maintain throughout?

Ans

✗ 1. Suspenseful and fearful

✗ 2. Humorous and casual

✗ 3. Critical and doubtful

✓ 4. Objective and informative

Question ID : **4410091507023**
Option 1 ID : **4410095952490**
Option 2 ID : **4410095952493**
Option 3 ID : **4410095952491**
Option 4 ID : **4410095952492**

Comprehension:

Read the following passage and answer the questions given below.

In the highlands of Arunava Plateau, archaeologists recently uncovered the remains of an ancient observatory built nearly two thousand years ago. The structure, made of precisely aligned stone pillars, was positioned to track the movements of the sun and stars with remarkable accuracy. Researchers believe that the civilization inhabiting the plateau used the observatory not only for understanding seasonal changes but also for guiding agricultural decisions and ceremonial events. Among the findings were clay tablets marked with circular patterns, suggesting an early attempt at recording celestial cycles. What surprised scholars most was the complexity of the site's design, which indicated knowledge comparable to other advanced ancient cultures. The discovery has drawn historians, astronomers, and environmental scientists, all eager to learn how early societies blended astronomy with daily life. As further excavations continue, the observatory is expected to reshape existing theories about scientific development in isolated mountain regions and highlight the global nature of humanity's early search for understanding the skies.

SubQuestion No : 13

Q.13 What is the central theme of the passage?

Ans

✗ 1. The influence of foreign cultures on mountain societies

✓ 2. The advanced astronomical awareness of early civilizations

✗ 3. The decline of scientific knowledge in ancient times

✗ 4. The dangers of excavating high-altitude sites

Question ID : **4410091507022**
Option 1 ID : **4410095952489**
Option 2 ID : **4410095952488**
Option 3 ID : **4410095952487**
Option 4 ID : **4410095952486**

Comprehension:

Read the following passage and answer the questions given below.

In the highlands of Arunava Plateau, archaeologists recently uncovered the remains of an ancient observatory built nearly two thousand years ago. The structure, made of precisely aligned stone pillars, was positioned to track the movements of the sun and stars with remarkable accuracy. Researchers believe that the civilization inhabiting the plateau used the observatory not only for understanding seasonal changes but also for guiding agricultural decisions and ceremonial events. Among the findings were clay tablets marked with circular patterns, suggesting an early attempt at recording celestial cycles. What surprised scholars most was the complexity of the site's design, which indicated knowledge comparable to other advanced ancient cultures. The discovery has drawn historians, astronomers, and environmental scientists, all eager to learn how early societies blended astronomy with daily life. As further excavations continue, the observatory is expected to reshape existing theories about scientific development in isolated mountain regions and highlight the global nature of humanity's early search for understanding the skies.

SubQuestion No : 14

Q.14 Which structural pattern best describes the passage?

Ans

✗ 1. A chronological biography of an ancient ruler

✓ 2. A description followed by implications for future study

✗ 3. A dialogue between scientists and villagers

✗ 4. A comparison between two archaeological sites

Question ID : **4410091507024**
Option 1 ID : **4410095952495**
Option 2 ID : **4410095952496**
Option 3 ID : **4410095952497**
Option 4 ID : **4410095952494**

Comprehension:

Read the following passage and answer the questions given below.

In the highlands of Arunava Plateau, archaeologists recently uncovered the remains of an ancient observatory built nearly two thousand years ago. The structure, made of precisely aligned stone pillars, was positioned to track the movements of the sun and stars with remarkable accuracy. Researchers believe that the civilization inhabiting the plateau used the observatory not only for understanding seasonal changes but also for guiding agricultural decisions and ceremonial events. Among the findings were clay tablets marked with circular patterns, suggesting an early attempt at recording celestial cycles. What surprised scholars most was the complexity of the site's design, which indicated knowledge comparable to other advanced ancient cultures. The discovery has drawn historians, astronomers, and environmental scientists, all eager to learn how early societies blended astronomy with daily life. As further excavations continue, the observatory is expected to reshape existing theories about scientific development in isolated mountain regions and highlight the global nature of humanity's early search for understanding the skies.

SubQuestion No : 15

Q.15 Which title best fits the passage?

Ans

✗ 1. A Journey Through the Desert Skies

✗ 2. Lost Kingdom Beneath the Sands

✗ 3. The Rise and Fall of a Forgotten Dynasty

✓ 4. The Mountain Observatory that Rewrote History

Question ID : **4410091507021**
Option 1 ID : **4410095952484**
Option 2 ID : **4410095952482**
Option 3 ID : **4410095952485**
Option 4 ID : **4410095952483**

Comprehension:

Read the given passage and answer the questions that follow.

The art of doing nothing is often misunderstood. In today's fast-moving world, people take pride in being constantly busy, as if busyness alone proves one's worth. Yet, taking time to be idle can be deeply valuable. A person who strolls, observes, and dreams may come to understand life far better than someone always rushing through endless tasks. When we slow down, we begin to notice small but beautiful details — the laughter of children, the rustle of leaves, the sunlight playing on trees, and the faces of people passing by. Idleness does not mean laziness; it means living with awareness and enjoying each moment instead of constantly chasing success, money, or deadlines. Those who hurry all the time may appear productive, but they often miss life's quiet joys. True idleness allows us to rest, reflect, and reconnect with ourselves and the world around us, making life fuller and more meaningful.

SubQuestion No : 16

Q.16 What emotional attitude does the passage convey toward modern busyness?

Ans

✗ 1. Indifference

✗ 2. Confusion

✗ 3. Admiration

✓ 4. Mild criticism

Question ID : **4410091489286**
Option 1 ID : **4410095883244**
Option 2 ID : **4410095883245**
Option 3 ID : **4410095883243**
Option 4 ID : **4410095883246**

Comprehension:

Read the given passage and answer the questions that follow.

The art of doing nothing is often misunderstood. In today's fast-moving world, people take pride in being constantly busy, as if busyness alone proves one's worth. Yet, taking time to be idle can be deeply valuable. A person who strolls, observes, and dreams may come to understand life far better than someone always rushing through endless tasks. When we slow down, we begin to notice small but beautiful details — the laughter of children, the rustle of leaves, the sunlight playing on trees, and the faces of people passing by. Idleness does not mean laziness; it means living with awareness and enjoying each moment instead of constantly chasing success, money, or deadlines. Those who hurry all the time may appear productive, but they often miss life's quiet joys. True idleness allows us to rest, reflect, and reconnect with ourselves and the world around us, making life fuller and more meaningful.

SubQuestion No : 17

Q.17 What is the central message of the passage?

Ans

✗ 1. Laziness should be encouraged.

✗ 2. Hard work leads to success.

✗ 3. Working less makes life easier.

✓ 4. Slowing down brings deeper meaning to life.

Question ID : **4410091489285**
Option 1 ID : **4410095883241**
Option 2 ID : **4410095883242**
Option 3 ID : **4410095883239**
Option 4 ID : **4410095883240**

Comprehension:

Read the given passage and answer the questions that follow.

The art of doing nothing is often misunderstood. In today's fast-moving world, people take pride in being constantly busy, as if busyness alone proves one's worth. Yet, taking time to be idle can be deeply valuable. A person who strolls, observes, and dreams may come to understand life far better than someone always rushing through endless tasks. When we slow down, we begin to notice small but beautiful details — the laughter of children, the rustle of leaves, the sunlight playing on trees, and the faces of people passing by. Idleness does not mean laziness; it means living with awareness and enjoying each moment instead of constantly chasing success, money, or deadlines. Those who hurry all the time may appear productive, but they often miss life's quiet joys. True idleness allows us to rest, reflect, and reconnect with ourselves and the world around us, making life fuller and more meaningful.

SubQuestion No : 18

Q.18 Which of the following titles best captures the essence of the passage?

Ans

✗ 1. How to Be Productive

✗ 2. The Dreamer's Life

✗ 3. The Joy of Laziness

✓ 4. The Value of Slowing Down

Question ID : **4410091489283**
Option 1 ID : **4410095883232**
Option 2 ID : **4410095883234**
Option 3 ID : **4410095883231**
Option 4 ID : **4410095883233**

Comprehension:

Read the given passage and answer the questions that follow.

The art of doing nothing is often misunderstood. In today's fast-moving world, people take pride in being constantly busy, as if busyness alone proves one's worth. Yet, taking time to be idle can be deeply valuable. A person who strolls, observes, and dreams may come to understand life far better than someone always rushing through endless tasks. When we slow down, we begin to notice small but beautiful details — the laughter of children, the rustle of leaves, the sunlight playing on trees, and the faces of people passing by. Idleness does not mean laziness; it means living with awareness and enjoying each moment instead of constantly chasing success, money, or deadlines. Those who hurry all the time may appear productive, but they often miss life's quiet joys. True idleness allows us to rest, reflect, and reconnect with ourselves and the world around us, making life fuller and more meaningful.

SubQuestion No : 19

Q.19 Choose the word closest in meaning to "idle" as used in the passage.

Ans

✗ 1. Peaceful

✗ 2. Careless

✗ 3. Energetic

✓ 4. Restful

Question ID : **4410091489284**
Option 1 ID : **4410095883238**
Option 2 ID : **4410095883235**
Option 3 ID : **4410095883236**
Option 4 ID : **4410095883237**

Comprehension:

Read the given passage and answer the questions that follow.

The art of doing nothing is often misunderstood. In today's fast-moving world, people take pride in being constantly busy, as if busyness alone proves one's worth. Yet, taking time to be idle can be deeply valuable. A person who strolls, observes, and dreams may come to understand life far better than someone always rushing through endless tasks. When we slow down, we begin to notice small but beautiful details — the laughter of children, the rustle of leaves, the sunlight playing on trees, and the faces of people passing by. Idleness does not mean laziness; it means living with awareness and enjoying each moment instead of constantly chasing success, money, or deadlines. Those who hurry all the time may appear productive, but they often miss life's quiet joys. True idleness allows us to rest, reflect, and reconnect with ourselves and the world around us, making life fuller and more meaningful.

SubQuestion No : 20

Q.20 **According to the passage, what is the main reason people take pride in being busy?**

Ans

✗ 1. They enjoy doing hard work.

✗ 2. They want to avoid loneliness.

✓ 3. They believe it makes them seem more important.

✗ 4. They dislike idleness.

Question ID : **4410091489282**
Option 1 ID : **4410095883227**
Option 2 ID : **4410095883229**
Option 3 ID : **4410095883228**
Option 4 ID : **4410095883230**

Section : **Hindi Language and Comprehension**

Q.1 **सही वाक्य-क्रम वाले वाक्य का चयन कीजिए-**

Ans

✗ 1. आज फिर / आतंक से / चंपक वन / शेर सिंह के / काँप उठा

✗ 2. आज फिर / शेर सिंह के / चंपक वन / आतंक से / काँप उठा

✓ 3. आज फिर / चंपक वन / शेर सिंह के / आतंक से / काँप उठा

✗ 4. आज फिर / चंपक वन / आतंक से / शेर सिंह के / काँप उठा

Question ID : **4410091493606**
Option 1 ID : **4410095900045**
Option 2 ID : **4410095900046**
Option 3 ID : **4410095900047**
Option 4 ID : **4410095900044**

Q.2 वाक्य के रिक्त स्थान को संबोधन कारक से पूर्ण करें।

..... देवी, मुझ पर कृपा करें ।

Ans
✗ 1. रे
✗ 2. अहो
✓ 3. हे
✗ 4. हो

Question ID : **441009354014**
Option 1 ID : **4410091382296**
Option 2 ID : **4410091382299**
Option 3 ID : **4410091382298**
Option 4 ID : **4410091382297**

Q.3 मेरा बेटा .....वर्ष का है ।
उपर्युक्त वाक्य में रिक्त स्थान की पूर्ति के लिए उचित विशेषण शब्द का चयन करें –

Ans
✗ 1. मिलनसार
✓ 2. सात
✗ 3. लाडला
✗ 4. सुंदर

Question ID : **4410091486248**
Option 1 ID : **4410095871419**
Option 2 ID : **4410095871417**
Option 3 ID : **4410095871418**
Option 4 ID : **4410095871416**

Q.4 ' आकाश को चूमने वाला' वाक्यांश के लिए एक सार्थक शब्द होगा –

Ans
✗ 1. गोचर
✓ 2. गगनचुंबी
✗ 3. आकाशवृत्ति
✗ 4. आकाशीय

Question ID : **441009400884**
Option 1 ID : **4410091568973**
Option 2 ID : **4410091568974**
Option 3 ID : **4410091568976**
Option 4 ID : **4410091568975**

QuickSarkari.com | WhatsApp Channel | Telegram: t.me/quick_sarkari

Q.5 उपयुक्त 'क्रिया' का चयन कर रिक्त स्थान की पूर्ति कीजिए।
' सितारे आसमान में .....हैं ।'

Ans
✗ 1. उतराते
✗ 2. पिसते
✓ 3. चमकते
✗ 4. खिलते

Question ID : **441009394939**
Option 1 ID : **4410091545265**
Option 2 ID : **4410091545266**
Option 3 ID : **4410091545264**
Option 4 ID : **4410091545267**

Q.6 वाक्य के रिक्त स्थान को सम्बन्ध कारक से पूर्ण करें।

प्रेमचंद ..... उपन्यास बहुत प्रसिद्ध हैं ।

Ans
✗ 1. का
✗ 2. की
✓ 3. के
✗ 4. से

Question ID : **441009354016**
Option 1 ID : **4410091382306**
Option 2 ID : **4410091382305**
Option 3 ID : **4410091382304**
Option 4 ID : **4410091382307**

Q.7 वाक्य के रिक्त स्थान को अधिकरण कारक से पूर्ण करें।

हाथी जंगल .... रहता है ।

Ans
✗ 1. के लिए
✓ 2. में
✗ 3. पर
✗ 4. को

Question ID : **441009354015**
Option 1 ID : **4410091382302**
Option 2 ID : **4410091382303**
Option 3 ID : **4410091382301**
Option 4 ID : **4410091382300**

QuickSarkari.com | WhatsApp Channel | Telegram: t.me/quick_sarkari

Q.8 ' जिसे शोक न हो' वाक्यांश के लिए एक सार्थक शब्द का चुनाव कीजिए।

Ans
✗ 1. अशुष्क
✗ 2. अशंक
✗ 3. अशीत
✓ 4. अशोक

Question ID : **441009476954**
Option 1 ID : **4410091863229**
Option 2 ID : **4410091863232**
Option 3 ID : **4410091863230**
Option 4 ID : **4410091863231**

Q.9 'जिसकी गहराई का पता न लग सके' वाक्यांश के लिए सार्थक शब्द क्या होगा ?

Ans
✗ 1. अनदेखा
✗ 2. अगाध
✗ 3. अभय
✓ 4. अथाह

Question ID : **441009476993**
Option 1 ID : **4410091863388**
Option 2 ID : **4410091863386**
Option 3 ID : **4410091863387**
Option 4 ID : **4410091863385**

Q.10 निम्न लोकोक्ति का सही अर्थ अंकित कीजिए।
ऊँट के ऊपर ऊँट-

Ans
✓ 1. भारी बोझ के ऊपर और अधिक बोझ डालना
✗ 2. पहले से भारी काम में कोई बढ़ोतरी नहीं की गई।
✗ 3. कठिनाई में राहत देकर बोझ हल्का किया गया।
✗ 4. उसने भारी बोझ को कम करने की कोशिश की

Question ID : **441009370461**
Option 1 ID : **4410091447756**
Option 2 ID : **4410091447755**
Option 3 ID : **4410091447754**
Option 4 ID : **4410091447753**

Q.11 नीचे दिए वाक्य में रिक्त-स्थान की पूर्ति के लिए दिए गए विकल्पों में से उचित क्रियापद चुनें-
रामू से टहला भी नहीं _____।

Ans
✗ 1. आता
✗ 2. सकता
✗ 3. करता
✓ 4. जाता

Question ID : **441009401988**
Option 1 ID : **4410091573342**
Option 2 ID : **4410091573344**
Option 3 ID : **4410091573343**
Option 4 ID : **4410091573345**

Q.12 'उधेड़बुन में पड़ना' मुहावरे का सही अर्थ होगा -

Ans
✗ 1. उन्नति पर होना
✗ 2. भेद कह देना
✓ 3. किसी समस्या के सोचने-विचारने में व्यस्त होना
✗ 4. बहुत कमतर होना

Question ID : **441009397633**
Option 1 ID : **4410091555975**
Option 2 ID : **4410091555976**
Option 3 ID : **4410091555977**
Option 4 ID : **4410091555974**

Q.13 निम्नलिखित वाक्यांश एक वाक्य का अभिन्न अंग हैं ,जो यहाँ क्रम में नहीं दिए गए हैं। इनको क्रम में लगाइए –
1.मिलने को व्याकुल है और गायें
2.अपने बछड़ों को प्यार करने के
3.लिए उतावली हो रही हैं
4.पक्षी अपने बच्चों से

Ans
✗ 1. 4,3,2,1
✗ 2. 1,2,3,4
✓ 3. 4,1,2,3
✗ 4. 2,4,1,3

Question ID : **4410091509311**
Option 1 ID : **4410095961904**
Option 2 ID : **4410095961906**
Option 3 ID : **4410095961907**
Option 4 ID : **4410095961905**

Q.14 दिये गये वाक्य का रिक्त स्थान सर्वोचित क्रिया शब्द से पूर्ण करें--
वह सफेद बिल्ली एक ऊँचे पेड़ पर आसानी से ..... गई ।

Ans
✗ 1. उचक
✗ 2. दौड़
✓ 3. चढ़
✗ 4. उतर

Question ID : **4410091478947**
Option 1 ID : **4410095843096**
Option 2 ID : **4410095843097**
Option 3 ID : **4410095843098**
Option 4 ID : **4410095843099**

QuickSarkari.com | WhatsApp Channel | Telegram: t.me/quick_sarkari

Q.15 देने की इच्छा' – उक्त वाक्यांश के स्थान पर निम्नलिखित में से किस एक शब्द का प्रयोग सार्थक है? चयन करें-

Ans
✔ 1. दित्सा
✘ 2. दुर्लभ
✘ 3. अनुरक्त
✘ 4. दूरदर्शी

Question ID : **441009681272**
Option 1 ID : **4410092679072**
Option 2 ID : **4410092679073**
Option 3 ID : **4410092679070**
Option 4 ID : **4410092679071**

Q.16 'पानी में आग लगाना' मुहावरे का अर्थ है--

Ans
✘ 1. ठंडे को गर्म करना
✘ 2. शांति स्थापित करना
✔ 3. शांति को अशांति में बदलना
✘ 4. उत्कृष्ट प्रस्तुति देना

Question ID : **441009401655**
Option 1 ID : **4410091572036**
Option 2 ID : **4410091572039**
Option 3 ID : **4410091572038**
Option 4 ID : **4410091572037**

Q.17 'ओछे की प्रीत बालू की भीत' लोकोक्ति का अर्थ है--

Ans
✔ 1. तुच्छ व्यक्ति के साथ मित्रता नहीं निभ सकती
✘ 2. बालू में प्रेम का बीज नहीं उपजता
✘ 3. अधिक वस्तु चाहने वाले की संतुष्टि नहीं होती
✘ 4. रेगिस्तान की बालू में पानी नहीं मिलता

Question ID : **441009401744**
Option 1 ID : **4410091572393**
Option 2 ID : **4410091572394**
Option 3 ID : **4410091572395**
Option 4 ID : **4410091572392**

Quick Sarkari

Q.18 निम्नलिखित वाक्यांश के स्थान पर किस एक शब्द का प्रयोग सार्थक है? चयन करें-

'इंद्र का सारथी'

Ans
✗ 1. भैरव
✗ 2. मृत्युंजय
✓ 3. मातलि
✗ 4. रथी

Question ID : **441009681275**
Option 1 ID : **4410092679085**
Option 2 ID : **4410092679083**
Option 3 ID : **4410092679082**
Option 4 ID : **4410092679084**

Q.19 'घोड़े बेचकर सोना' मुहावरे का सही अर्थ है-

Ans
✗ 1. अपना आधिपत्य स्थापित करना
✓ 2. निश्चिन्त होना
✗ 3. काम बिगाड़ना
✗ 4. अनुपस्थित होना

Question ID : **441009462527**
Option 1 ID : **4410091808524**
Option 2 ID : **4410091808525**
Option 3 ID : **4410091808522**
Option 4 ID : **4410091808523**

Q.20 'एक तरकश के तीर होना' मुहावरे का सही अर्थ होगा -

Ans
✓ 1. एक गुट के होना
✗ 2. एक चाल से दो को हराना
✗ 3. मेल से बहुत बल बढ़ जाता है
✗ 4. नीलम करना

Question ID : **441009397660**
Option 1 ID : **4410091556084**
Option 2 ID : **4410091556083**
Option 3 ID : **4410091556082**
Option 4 ID : **4410091556085**

Section : **Hindi Language and Comprehension1**

QuickSarkari.com | WhatsApp Channel | Telegram: t.me/quick_sarkari

Q.1 दिए गए वाक्य के रेखांकित शब्द का पर्यायवाची पहचानें -
कठिन समय में साहस व्यक्ति को आगे बढ़ने की शक्ति देता है।

Ans
✔ 1. हिम्मत
✘ 2. खिड़की
✘ 3. सुई
✘ 4. परदा

Question ID : **4410091515503**
Option 1 ID : **4410095985413**
Option 2 ID : **4410095985416**
Option 3 ID : **4410095985415**
Option 4 ID : **4410095985414**

Q.2 निम्नलिखित वाक्य में रेखांकित शब्द का विलोम क्या होगा?
राजनेता के सामने वह मूक हो जाता है।

Ans
✘ 1. मैत्री
✘ 2. अहंकारी
✔ 3. वाचाल
✘ 4. सम्यक

Question ID : **4410091648835**
Option 1 ID : **4410096511552**
Option 2 ID : **4410096511555**
Option 3 ID : **4410096511554**
Option 4 ID : **4410096511553**

Q.3 दिए गए वाक्य के रेखांकित शब्द का पर्यायवाची पहचानें-
समय पर निर्णय लेना कई समस्याओं से बचा सकता है।

Ans
✘ 1. दीपक
✔ 2. फैसला
✘ 3. टोपी
✘ 4. मशीन

Question ID : **4410091515489**
Option 1 ID : **4410095985359**
Option 2 ID : **4410095985357**
Option 3 ID : **4410095985360**
Option 4 ID : **4410095985358**

Quick Sarkari

Q.4 निम्नलिखित वाक्य में से अशुद्ध वर्तनी वाले अंश को पहचानें -
सुबह की सैर शरीर और मन दोनों को पूर्ण ताजगी प्रदन करती है।

Ans
✔ 1. प्रदन करती है
✘ 2. दोनों को पूर्ण ताजगी
✘ 3. शरीर और मन
✘ 4. सुबह की सैर

Question ID : **4410091514118**
Option 1 ID : **4410095980405**
Option 2 ID : **4410095980404**
Option 3 ID : **4410095980403**
Option 4 ID : **4410095980402**

Q.5 निम्नलिखित वाक्य में वर्तनी की त्रुटियाँ पहचानें और शुद्ध वाक्य लिखें
तुम सच-समझ कर बोल कर, तूम्हारी बातो से लोग को दुख होता हैं।

Ans
✘ 1. तोम सोच-सामज कर बोला करो, तुम्हाऋ बातों से लोगों के दुख होता हैं।
✘ 2. तूम सोच-समज कर बोला करो, तुम्हारी बातों से लोगों को दोख होता है।
✔ 3. तुम सोच-समझ कर बोला करो, तुम्हारी बातों से लोगों को दुख होता है।
✘ 4. तुम सोछ-समाझ कर बोलो करो, तुम्हरी बातों में लोग का दुख होता है।

Question ID : **441009288557**
Option 1 ID : **4410091121197**
Option 2 ID : **4410091121196**
Option 3 ID : **4410091121194**
Option 4 ID : **4410091121195**

Q.6 निम्न विकल्पों में वाक्य के रेखांकित शब्द में शुद्ध वर्तनी का चयन करें-
वह हमारे मुख्य <u>आतिथि</u> थे।

Ans
✘ 1. अतीथी
✘ 2. अतिथी
✔ 3. अतिथि
✘ 4. अतीथि

Question ID : **441009291142**
Option 1 ID : **4410091131421**
Option 2 ID : **4410091131419**
Option 3 ID : **4410091131420**
Option 4 ID : **4410091131418**

QuickSarkari.com | WhatsApp Channel | Telegram: t.me/quick_sarkari

Q.7 निम्नलिखित वाक्य में रेखांकित शब्द का विलोम क्या होगा?
कोणार्क का सूर्य मंदिर अपनी शैली में भव्य है।

Ans
✔ 1. साधारण
✘ 2. अनार्य
✘ 3. अद्वितीय
✘ 4. अनुपम

Question ID : **4410091648741**
Option 1 ID : **4410096511245**
Option 2 ID : **4410096511244**
Option 3 ID : **4410096511247**
Option 4 ID : **4410096511246**

Q.8 निम्नलिखित वाक्य में रेखांकित शब्द का विलोम क्या होगा?
शंकराचार्य ने स्वल्पायु में ज्ञान का साक्षात्कार किया।

Ans
✘ 1. दायिनी
✘ 2. मेदिनी
✘ 3. प्राणवायु
✔ 4. चिरायु

Question ID : **4410091648935**
Option 1 ID : **4410096511952**
Option 2 ID : **4410096511955**
Option 3 ID : **4410096511954**
Option 4 ID : **4410096511953**

Q.9 निम्नलिखित वाक्य में रेखांकित शब्द का विलोम क्या होगा?
भक्तिकाल में सगुण की उपासना की गई है।

Ans
✘ 1. भक्ति
✔ 2. निर्गुण
✘ 3. संगत
✘ 4. श्रद्धा

Question ID : **4410091648843**
Option 1 ID : **4410096511586**
Option 2 ID : **4410096511585**
Option 3 ID : **4410096511584**
Option 4 ID : **4410096511587**

QuickSarkari.com | WhatsApp Channel | Telegram: t.me/quick_sarkari

Q.10 दिये गये वाक्य के किस अंश में त्रुटि है?

संकीर्ण विचारों का परित्याग कर देने में ही वास्तविक प्रगती निहित है।

Ans
✔ 1. प्रगती निहित है।
✘ 2. में ही वास्तविक
✘ 3. संकीर्ण विचारों का
✘ 4. परित्याग कर देने

Question ID : **4410091370907**
Option 1 ID : **4410095415051**
Option 2 ID : **4410095415050**
Option 3 ID : **4410095415048**
Option 4 ID : **4410095415049**

Comprehension:

दिए गए गद्यांश के आधार पर पूछे गए प्रश्नों का उत्तर दीजिए।
आत्मबोध मूलत: दर्शनशास्त्र का एक प्रचलित शब्द है जिसका प्रयोग साहित्य में भी बखूबी होता है। निराला और जयशंकर प्रसाद से लेकर मुक्तिबोध और अज्ञेय ने भी अपने लेखन में 'आत्मबोध' शब्द का प्रयोग किया है । यह शब्द अपने अर्थ और प्रयोग की दृष्टि से 'आत्मज्ञान' से कुछ भिन्न है। आत्मबोध में एक निजता का भाव है। अपने को बाहर-भीतर से जानना, अपनी शक्ति और सामर्थ्य के प्रति सचेत होना, अपनी सीमाओं के प्रति जागरूक होना आत्मबोध है। आत्मबोध में व्यक्ति का कर्तव्य बोध- शामिल है, व्यक्ति की स्वतंत्रता के साथ सामाजिक चेतना भी निहित है। आत्मबोध अंत: जागरण की ओर संकेत करता है। जब कोई व्यक्ति निजी स्तर पर आंतरिक रूप से जागृत नहीं होगा, उसमें सामाजिक जागरूकता नहीं आ सकती। अंत: जागरण सामाजिक जागरण की पहली शर्त है। आध्यात्मिक दृष्टि से से कोई व्यक्ति आत्मबोध के बाद अर्थहीन इच्छाओं और पाशविक वृत्तियों से मुक्त होकर वास्तविक स्वतंत्रता का अनुभव करता है।

SubQuestion No : 11

Q.11 आत्मबोध में व्यक्ति का क्या शामिल होता है?

Ans
✘ 1. पाशविक वृत्ति
✔ 2. कर्तव्य बोध
✘ 3. सामर्थ्य
✘ 4. शक्ति

Question ID : **4410091259875**
Option 1 ID : **4410094972378**
Option 2 ID : **4410094972379**
Option 3 ID : **4410094972381**
Option 4 ID : **4410094972380**

Quick Sarkari

Comprehension:

दिए गए गद्यांश के आधार पर पूछे गए प्रश्नों का उत्तर दीजिए।
आत्मबोध मूलत: दर्शनशास्त्र का एक प्रचलित शब्द है जिसका प्रयोग साहित्य में भी बखूबी होता है। निराला और जयशंकर प्रसाद से लेकर मुक्तिबोध और अज्ञेय ने भी अपने लेखन में 'आत्मबोध' शब्द का प्रयोग किया है । यह शब्द अपने अर्थ और प्रयोग की दृष्टि से 'आत्मज्ञान' से कुछ भिन्न है। आत्मबोध में एक निजता का भाव है। अपने को बाहर-भीतर से जानना, अपनी शक्ति और सामर्थ्य के प्रति सचेत होना, अपनी सीमाओं के प्रति जागरूक होना आत्मबोध है। आत्मबोध में व्यक्ति का कर्तव्य बोध- शामिल है, व्यक्ति की स्वतंत्रता के साथ सामाजिक चेतना भी निहित है। आत्मबोध अंत: जागरण की ओर संकेत करता है। जब कोई व्यक्ति निजी स्तर पर आंतरिक रूप से जागृत नहीं होगा, उसमें सामाजिक जागरूकता नहीं आ सकती। अंत: जागरण सामाजिक जागरण की पहली शर्त है। आध्यात्मिक दृष्टि से से कोई व्यक्ति आत्मबोध के बाद अर्थहीन इच्छाओं और पाशविक वृत्तियों से मुक्त होकर वास्तविक स्वतंत्रता का अनुभव करता है।

SubQuestion No : 12

Q.12 सामाजिक जागरण की पहली शर्त क्या होती है?

Ans

✔ 1. अंत: जागरण

✘ 2. उन्माद

✘ 3. तीव्रता

✘ 4. सक्रिय

Question ID : **4410091259874**
Option 1 ID : **4410094972374**
Option 2 ID : **4410094972377**
Option 3 ID : **4410094972375**
Option 4 ID : **4410094972376**

Comprehension:

दिए गए गद्यांश के आधार पर पूछे गए प्रश्नों का उत्तर दीजिए।
आत्मबोध मूलत: दर्शनशास्त्र का एक प्रचलित शब्द है जिसका प्रयोग साहित्य में भी बखूबी होता है। निराला और जयशंकर प्रसाद से लेकर मुक्तिबोध और अज्ञेय ने भी अपने लेखन में 'आत्मबोध' शब्द का प्रयोग किया है । यह शब्द अपने अर्थ और प्रयोग की दृष्टि से 'आत्मज्ञान' से कुछ भिन्न है। आत्मबोध में एक निजता का भाव है। अपने को बाहर-भीतर से जानना, अपनी शक्ति और सामर्थ्य के प्रति सचेत होना, अपनी सीमाओं के प्रति जागरूक होना आत्मबोध है। आत्मबोध में व्यक्ति का कर्तव्य बोध- शामिल है, व्यक्ति की स्वतंत्रता के साथ सामाजिक चेतना भी निहित है। आत्मबोध अंत: जागरण की ओर संकेत करता है। जब कोई व्यक्ति निजी स्तर पर आंतरिक रूप से जागृत नहीं होगा, उसमें सामाजिक जागरूकता नहीं आ सकती। अंत: जागरण सामाजिक जागरण की पहली शर्त है। आध्यात्मिक दृष्टि से से कोई व्यक्ति आत्मबोध के बाद अर्थहीन इच्छाओं और पाशविक वृत्तियों से मुक्त होकर वास्तविक स्वतंत्रता का अनुभव करता है।

SubQuestion No : 13

Q.13 प्रस्तुत गद्यांश के लिए उचित शीर्षक क्या है?

Ans

✘ 1. सामाजिक चेतना

✘ 2. मनोविज्ञान

✔ 3. आत्मबोध

✘ 4. दर्शनशास्त्र

Question ID : **4410091259877**
Option 1 ID : **4410094972387**
Option 2 ID : **4410094972389**
Option 3 ID : **4410094972388**
Option 4 ID : **4410094972386**

Comprehension:

दिए गए गद्यांश के आधार पर पूछे गए प्रश्नों का उत्तर दीजिए।
आत्मबोध मूलत: दर्शनशास्त्र का एक प्रचलित शब्द है जिसका प्रयोग साहित्य में भी बखूबी होता है। निराला और जयशंकर प्रसाद से लेकर मुक्तिबोध और अज्ञेय ने भी अपने लेखन में 'आत्मबोध' शब्द का प्रयोग किया है । यह शब्द अपने अर्थ और प्रयोग की दृष्टि से 'आत्मज्ञान' से कुछ भिन्न है। आत्मबोध में एक निजता का भाव है। अपने को बाहर-भीतर से जानना, अपनी शक्ति और सामर्थ्य के प्रति सचेत होना, अपनी सीमाओं के प्रति जागरूक होना आत्मबोध है। आत्मबोध में व्यक्ति का कर्तव्य बोध- शामिल है, व्यक्ति की स्वतंत्रता के साथ सामाजिक चेतना भी निहित है। आत्मबोध अंत: जागरण की ओर संकेत करता है। जब कोई व्यक्ति निजी स्तर पर आंतरिक रूप से जागृत नहीं होगा, उसमें सामाजिक जागरूकता नहीं आ सकती। अंत: जागरण सामाजिक जागरण की पहली शर्त है। आध्यात्मिक दृष्टि से से कोई व्यक्ति आत्मबोध के बाद अर्थहीन इच्छाओं और पाशविक वृत्तियों से मुक्त होकर वास्तविक स्वतंत्रता का अनुभव करता है।

SubQuestion No : 14

Q.14 निम्नलिखित में से किस एक विकल्प में 'भाव' के विलोम का उचित प्रयोग हुआ है?

Ans

✔ 1. अभाव

✘ 2. खलक

✘ 3. खल्क

✘ 4. लोक

Question ID : **4410091259878**
Option 1 ID : **4410094972390**
Option 2 ID : **4410094972392**
Option 3 ID : **4410094972391**
Option 4 ID : **4410094972393**

Comprehension:

दिए गए गद्यांश के आधार पर पूछे गए प्रश्नों का उत्तर दीजिए।
आत्मबोध मूलत: दर्शनशास्त्र का एक प्रचलित शब्द है जिसका प्रयोग साहित्य में भी बखूबी होता है। निराला और जयशंकर प्रसाद से लेकर मुक्तिबोध और अज्ञेय ने भी अपने लेखन में 'आत्मबोध' शब्द का प्रयोग किया है । यह शब्द अपने अर्थ और प्रयोग की दृष्टि से 'आत्मज्ञान' से कुछ भिन्न है। आत्मबोध में एक निजता का भाव है। अपने को बाहर-भीतर से जानना, अपनी शक्ति और सामर्थ्य के प्रति सचेत होना, अपनी सीमाओं के प्रति जागरूक होना आत्मबोध है। आत्मबोध में व्यक्ति का कर्तव्य बोध- शामिल है, व्यक्ति की स्वतंत्रता के साथ सामाजिक चेतना भी निहित है। आत्मबोध अंत: जागरण की ओर संकेत करता है। जब कोई व्यक्ति निजी स्तर पर आंतरिक रूप से जागृत नहीं होगा, उसमें सामाजिक जागरूकता नहीं आ सकती। अंत: जागरण सामाजिक जागरण की पहली शर्त है। आध्यात्मिक दृष्टि से से कोई व्यक्ति आत्मबोध के बाद अर्थहीन इच्छाओं और पाशविक वृत्तियों से मुक्त होकर वास्तविक स्वतंत्रता का अनुभव करता है।

SubQuestion No : 15

Q.15 प्रस्तुत गद्यांश का वास्तविक जीवन से सम्बन्ध क्या है?

Ans

✘ 1. जन जागरण का महत्त्व

✘ 2. समय का महत्त्व

✔ 3. आत्मबोध का महत्त्व

✘ 4. स्वतंत्रता का महत्त्व

Question ID : **4410091259876**
Option 1 ID : **4410094972382**
Option 2 ID : **4410094972384**
Option 3 ID : **4410094972383**
Option 4 ID : **4410094972385**

Comprehension:

दिए गए गद्यांश के आधार पर पूछे गए प्रश्नों का उत्तर दीजिए।
आशावाद वस्तुत: एक मन: स्थिति है, जिसका अर्थ यह है कि भविष्य अच्छा होगा । आशावाद की परिभाषा के लिए अमूमन पानी से आधे भरे गिलास का उदाहरण दिया जाता है। जो लोग कहते हैं की गिलास आधा भरा है, वे आशावादी होते हैं और जो लोग कहते हैं कि गिलास आधा खाली है उन्हें निराशावादी माना जाता है। 'भरा' और 'खाली' व्यक्ति की मन: स्थिति की सूचना देते हैं। इनसे जीवन दृष्टि का भी पता चलता है। आशावाद व्यक्ति के सकारात्मक दृष्टिकोण का संसूचक होता है। प्राचीन आशावादी दार्शनिकों में अरस्तू, एपीक्यूरस आदि प्रमुख हैं। इस संसार को यथासंभव संसार मानना 'आशावाद' है। यह एक विशेष दृष्टिकोण है। इसके अनुसार, जीवन के संदर्भ में किसी भी घटना अथवा किसी भी वस्तु के हमेशा उज्ज्वल पक्ष को देखना, उसके बारे में सकारात्मक-आशामयी दृष्टि रखना 'आशावाद' है। इस दृष्टिकोण वाले व्यक्ति का स्वभाव सदैव अच्छी बातों और अच्छे परिणामों की आशा करने वाला होता है।

SubQuestion No : 16

Q.16 'आशावाद' का उचित अर्थ क्या है?

Ans

✗ 1. नकारात्मक दृष्टिकोण

✗ 2. जीवन का उतार-चढ़ाव

✗ 3. किस्मत का खेल

✓ 4. अच्छे भविष्य की कामना

Question ID : **4410091259821**
Option 1 ID : **4410094972166**
Option 2 ID : **4410094972167**
Option 3 ID : **4410094972169**
Option 4 ID : **4410094972168**

Comprehension:

दिए गए गद्यांश के आधार पर पूछे गए प्रश्नों का उत्तर दीजिए।
आशावाद वस्तुत: एक मन: स्थिति है, जिसका अर्थ यह है कि भविष्य अच्छा होगा । आशावाद की परिभाषा के लिए अमूमन पानी से आधे भरे गिलास का उदाहरण दिया जाता है। जो लोग कहते हैं की गिलास आधा भरा है, वे आशावादी होते हैं और जो लोग कहते हैं कि गिलास आधा खाली है उन्हें निराशावादी माना जाता है। 'भरा' और 'खाली' व्यक्ति की मन: स्थिति की सूचना देते हैं। इनसे जीवन दृष्टि का भी पता चलता है। आशावाद व्यक्ति के सकारात्मक दृष्टिकोण का संसूचक होता है। प्राचीन आशावादी दार्शनिकों में अरस्तू, एपीक्यूरस आदि प्रमुख हैं। इस संसार को यथासंभव संसार मानना 'आशावाद' है। यह एक विशेष दृष्टिकोण है। इसके अनुसार, जीवन के संदर्भ में किसी भी घटना अथवा किसी भी वस्तु के हमेशा उज्ज्वल पक्ष को देखना, उसके बारे में सकारात्मक-आशामयी दृष्टि रखना 'आशावाद' है। इस दृष्टिकोण वाले व्यक्ति का स्वभाव सदैव अच्छी बातों और अच्छे परिणामों की आशा करने वाला होता है।

SubQuestion No : 17

Q.17 प्रस्तुत गद्यांश का वास्तविक जीवन से सम्बन्ध क्या है?

Ans

✗ 1. समकालीन समाज का महत्त्व

✗ 2. व्यक्ति के नकारात्मक दृष्टिकोण का महत्त्व

✗ 3. दर्शन का महत्त्व

✓ 4. आशावाद का महत्त्व

Question ID : **4410091259822**
Option 1 ID : **4410094972173**
Option 2 ID : **4410094972171**
Option 3 ID : **4410094972170**
Option 4 ID : **4410094972172**

QuickSarkari.com | WhatsApp Channel | Telegram: t.me/quick_sarkari

Comprehension:

दिए गए गद्यांश के आधार पर पूछे गए प्रश्नों का उत्तर दीजिए।
आशावाद वस्तुत: एक मन: स्थिति है, जिसका अर्थ यह है कि भविष्य अच्छा होगा । आशावाद की परिभाषा के लिए अमूमन पानी से आधे भरे गिलास का उदाहरण दिया जाता है। जो लोग कहते हैं की गिलास आधा भरा है, वे आशावादी होते हैं और जो लोग कहते हैं कि गिलास आधा खाली है उन्हें निराशावादी माना जाता है। 'भरा' और 'खाली' व्यक्ति की मन: स्थिति की सूचना देते हैं। इनसे जीवन दृष्टि का भी पता चलता है। आशावाद व्यक्ति के सकारात्मक दृष्टिकोण का संसूचक होता है। प्राचीन आशावादी दार्शनिकों में अरस्तू, एपीक्यूरस आदि प्रमुख हैं। इस संसार को यथासंभव संसार मानना 'आशावाद' है। यह एक विशेष दृष्टिकोण है। इसके अनुसार, जीवन के संदर्भ में किसी भी घटना अथवा किसी भी वस्तु के हमेशा उज्ज्वल पक्ष को देखना, उसके बारे में सकारात्मक-आशामयी दृष्टि रखना 'आशावाद' है। इस दृष्टिकोण वाले व्यक्ति का स्वभाव सदैव अच्छी बातों और अच्छे परिणामों की आशा करने वाला होता है।

SubQuestion No : 18

Q.18 निम्नलिखित में से किस एक विकल्प में 'संसार' के पर्याय का प्रयोग हुआ है?

Ans

✗ 1. अर्णव

✗ 2. अंबुधि

✗ 3. अब्धि

✓ 4. भव

Question ID : **4410091259824**
Option 1 ID : **4410094972178**
Option 2 ID : **4410094972180**
Option 3 ID : **4410094972179**
Option 4 ID : **4410094972181**

Comprehension:

दिए गए गद्यांश के आधार पर पूछे गए प्रश्नों का उत्तर दीजिए।
आशावाद वस्तुत: एक मन: स्थिति है, जिसका अर्थ यह है कि भविष्य अच्छा होगा । आशावाद की परिभाषा के लिए अमूमन पानी से आधे भरे गिलास का उदाहरण दिया जाता है। जो लोग कहते हैं की गिलास आधा भरा है, वे आशावादी होते हैं और जो लोग कहते हैं कि गिलास आधा खाली है उन्हें निराशावादी माना जाता है। 'भरा' और 'खाली' व्यक्ति की मन: स्थिति की सूचना देते हैं। इनसे जीवन दृष्टि का भी पता चलता है। आशावाद व्यक्ति के सकारात्मक दृष्टिकोण का संसूचक होता है। प्राचीन आशावादी दार्शनिकों में अरस्तू, एपीक्यूरस आदि प्रमुख हैं। इस संसार को यथासंभव संसार मानना 'आशावाद' है। यह एक विशेष दृष्टिकोण है। इसके अनुसार, जीवन के संदर्भ में किसी भी घटना अथवा किसी भी वस्तु के हमेशा उज्ज्वल पक्ष को देखना, उसके बारे में सकारात्मक-आशामयी दृष्टि रखना 'आशावाद' है। इस दृष्टिकोण वाले व्यक्ति का स्वभाव सदैव अच्छी बातों और अच्छे परिणामों की आशा करने वाला होता है।

SubQuestion No : 19

Q.19 जीवन के संदर्भ में किसी भी घटना अथवा किसी भी वस्तु के हमेशा उज्ज्वल पक्ष को देखना एवं उसके बारे में सकारात्मक दृष्टि रखना क्या कहलाता है?

Ans

✗ 1. निराशावाद

✓ 2. आशावाद

✗ 3. मानवतावाद

✗ 4. संवेदना के धरातल

Question ID : **4410091259820**
Option 1 ID : **4410094972163**
Option 2 ID : **4410094972162**
Option 3 ID : **4410094972164**
Option 4 ID : **4410094972165**

Comprehension:

दिए गए गद्यांश के आधार पर पूछे गए प्रश्नों का उत्तर दीजिए।
आशावाद वस्तुत: एक मन: स्थिति है, जिसका अर्थ यह है कि भविष्य अच्छा होगा । आशावाद की परिभाषा के लिए अमूमन पानी से आधे भरे गिलास का उदाहरण दिया जाता है। जो लोग कहते हैं की गिलास आधा भरा है, वे आशावादी होते हैं और जो लोग कहते हैं कि गिलास आधा खाली है उन्हें निराशावादी माना जाता है। 'भरा' और 'खाली' व्यक्ति की मन: स्थिति की सूचना देते हैं। इनसे जीवन दृष्टि का भी पता चलता है। आशावाद व्यक्ति के सकारात्मक दृष्टिकोण का संसूचक होता है। प्राचीन आशावादी दार्शनिकों में अरस्तू, एपीक्यूरस आदि प्रमुख हैं। इस संसार को यथासंभव संसार मानना 'आशावाद' है। यह एक विशेष दृष्टिकोण है। इसके अनुसार, जीवन के संदर्भ में किसी भी घटना अथवा किसी भी वस्तु के हमेशा उज्ज्वल पक्ष को देखना, उसके बारे में सकारात्मक-आशामयी दृष्टि रखना 'आशावाद' है। इस दृष्टिकोण वाले व्यक्ति का स्वभाव सदैव अच्छी बातों और अच्छे परिणामों की आशा करने वाला होता है।

SubQuestion No : 20

Q.20 प्रस्तुत गद्यांश के लिए उचित शीर्षक क्या है?

Ans

✗ 1. संस्मरण

✓ 2. आशावाद

✗ 3. संवाद

✗ 4. पर्यावरण और साहित्य

Question ID : **4410091259823**
Option 1 ID : **4410094972177**
Option 2 ID : **4410094972176**
Option 3 ID : **4410094972174**
Option 4 ID : **4410094972175**

QuickSarkari

Quick Sarkari

Thank you for studying with QuickSarkari!

Get the latest Sarkari Naukri notifications, admit cards, results, answer keys and free previous-year papers first - follow us on WhatsApp and Telegram.

Visit www.quicksarkari.com

Join our WhatsApp Channel

https://whatsapp.com/channel/0029VaxxbrREquiPoXTWM229

Join our Telegram Channel

https://t.me/quick_sarkari

Share this PDF with your friends preparing for DSSSB exams.