DSSSB PREVIOUS YEAR PAPER WITH ANSWER KEY

DSSSB Assistant Security Officer

2 March 2026 · Shift 2

डीएसएसएसबी सहायक सुरक्षा अधिकारी – 2 मार्च 2026, शिफ्ट 2 का प्रश्न पत्र, उत्तर कुंजी सहित

200	120 min	1 / −0.25	EN + HI
Questions / प्रश्न	Duration / समय	Marks per Q / अंक	Language / भाषा

Sections: General intelligence and Reasoning Ability, General Awareness, Arithmetical and Numerical Ability, English Language and Comprehension, Hindi Language and Comprehension

INSIDE THIS PDF / इस PDF में

Question Paper in English + Hindi with Answer Key (correct option marked in green) + answer table — Page 2–51
प्रश्न पत्र अंग्रेज़ी + हिंदी में, उत्तर कुंजी सहित (सही विकल्प हरे रंग में) + उत्तर तालिका

Official DSSSB Response Sheet with Answer Key (correct option ticked in green) — Page 52–123
आधिकारिक DSSSB रिस्पॉन्स शीट, उत्तर कुंजी सहित (सही विकल्प हरे टिक से)

HOW TO USE THIS PAPER / इस पेपर का उपयोग कैसे करें

1. Attempt the paper first as a timed online mock test (link below).
   पहले नीचे दिए लिंक से इसे टाइमर के साथ ऑनलाइन मॉक टेस्ट के रूप में हल करें।
2. Check your score, section-wise analysis and solutions online.
   ऑनलाइन अपना स्कोर, खंड-वार विश्लेषण और हल देखें।
3. Use this PDF for revision. Correct answers are shown in green.
   दोहराने के लिए इस PDF का उपयोग करें। सही उत्तर हरे रंग में दिए गए हैं।

Attempt this paper as a FREE online mock test

इस पेपर को फ्री ऑनलाइन मॉक टेस्ट के रूप में हल करें – टाइमर, स्कोर और हल के साथ

https://quicksarkari.com/dsssb-assistant-security-officer-02-march-2026-shift-2-mock-test/

All DSSSB Assistant Security Officer papers and mock tests: **quicksarkari.com/dsssb-mock-test/#assistant-security-officer**

Join WhatsApp Channel | Join Telegram Channel

DSSSB Assistant Security Officer – Question Paper (English + Hindi)

DSSSB सहायक सुरक्षा अधिकारी – प्रश्न पत्र (अंग्रेज़ी + हिंदी)

Exam held on 2 March 2026, Shift 2 · 200 questions · correct answers marked ✔ in green
परीक्षा तिथि 2 मार्च 2026, शिफ्ट 2 · 200 प्रश्न · सही उत्तर हरे रंग में ✔ से चिह्नित

> The official paper for this shift was in English. The Hindi version of each question is a translation prepared by QuickSarkari; the language-section questions are shown as asked.
> इस शिफ्ट का आधिकारिक प्रश्न पत्र अंग्रेज़ी में था। प्रत्येक प्रश्न का हिंदी संस्करण QuickSarkari द्वारा तैयार किया गया अनुवाद है; भाषा खंड के प्रश्न मूल रूप में दिए गए हैं।

General intelligence and Reasoning Ability

Q.1 Refer to the following letter series and answer the question that follows. Counting to be done from left to right only.
(Left) Z A X C V E T G R I P L N K (Right)
How many consonants are there, which are immediately preceded by vowels?
निम्नलिखित अक्षर श्रृंखला को देखें और उसके बाद दिए गए प्रश्न का उत्तर दें। गिनती केवल बाएँ से दाएँ की जानी है।
(बाएँ) Z A X C V E T G R I P L N K (दाएँ)
ऐसे कितने व्यंजन हैं, जिनके ठीक पहले स्वर है?

(1) Two / दो
(2) **Three / तीन ✔**
(3) Five / पाँच
(4) Four / चार

Q.2 Seven boxes R,A,C, K,E,T and S are kept one over the other but not necessarily in the same order.
Only four boxes are kept between E and K. Only R is kept above E. Only two boxes are kept between A and T.
C is kept immediately above S. T is not kept immediately above C.
Which box is kept fourth from the top?
सात बक्से R,A,C, K,E,T और S एक के ऊपर एक रखे गए हैं, लेकिन जरूरी नहीं कि इसी क्रम में हों।
E और K के बीच केवल चार बक्से रखे गए हैं। E के ऊपर केवल R रखा गया है। A और T के बीच केवल दो बक्से रखे गए हैं। C, S के ठीक ऊपर रखा गया है। T, C के ठीक ऊपर नहीं रखा गया है।
ऊपर से चौथे स्थान पर कौन-सा बक्सा रखा गया है?

(1) K
(2) A
(3) **C ✔**
(4) R

Q.3 Refer to the following letter series and answer the question. Counting to be done from left to right only.
(Left) K L M N P Q R S T U V W X (Right)
How many such letters are there which are immediately preceded by a consonant and also immediately followed by a vowel?

निम्नलिखित अक्षर श्रृंखला को देखें और प्रश्न का उत्तर दें। गिनती केवल बाएँ से दाएँ की जानी है।
(बाएँ) K L M N P Q R S T U V W X (दाएँ)
ऐसे कितने अक्षर हैं जिनके ठीक पहले एक व्यंजन है और ठीक बाद एक स्वर भी है?

(1) Three / तीन
(2) Two / दो
(3) None / कोई नहीं
(4) One / एक ✔

Q.4 In a code language, 'A + B' means 'A is the son of B'
'A - B' means 'A is the brother of B'
'A x B' means 'A is the wife of B'
'A & B' means 'A is the father of B'
Which of the following mean that G is the brother of P?
I. G + F - K x L & P
II. G + F x K & L - P
III. G - F + K x L & P
IV. G x F + K & L - P

एक कूट भाषा में, 'A + B' का अर्थ है 'A, B का पुत्र है'
'A - B' का अर्थ है 'A, B का भाई है'
'A x B' का अर्थ है 'A, B की पत्नी है'
'A & B' का अर्थ है 'A, B का पिता है'
निम्नलिखित में से किसका अर्थ है कि G, P का भाई है?
I. G + F - K x L & P
II. G + F x K & L - P
III. G - F + K x L & P
IV. G x F + K & L - P

(1) Both II and III / II और III दोनों ✔
(2) Both I and IV / I और IV दोनों
(3) Both II and IV / II और IV दोनों
(4) Both I and III / I और III दोनों

Q.5 Each vowel in the word CONTAIN is changed to the letter immediately following it in the English alphabetical order and each consonant is changed to the letter immediately preceding it in the English alphabetical order. Which of the following letters will be fifth from the left in the new group of letters thus formed?

शब्द CONTAIN में प्रत्येक स्वर को अंग्रेज़ी वर्णमाला क्रम में उसके ठीक बाद वाले अक्षर से बदल दिया जाता है और प्रत्येक व्यंजन को अंग्रेज़ी वर्णमाला क्रम में उसके ठीक पहले वाले अक्षर से बदल दिया जाता है। इस प्रकार बने अक्षरों के नए समूह में बाएँ से पाँचवाँ अक्षर निम्नलिखित में से कौन-सा होगा?

(1) L
(2) B ✔
(3) N
(4) M

Q.6 W,I,N,T,E,R and S are sitting around a circular table facing the centre of the table.
Only one person sits between T and W when counted from the left of W. N sits third to the right of S. E sits third to the left of R. N sits to the immediate right of E. I is not an immediate neighbor of E.
How many people sit between I and W when counted from the right of I?

W,I,N,T,E,R और S एक वृत्ताकार मेज के चारों ओर मेज के केंद्र की ओर मुख करके बैठे हैं।
W के बाएँ से गिनने पर T और W के बीच केवल एक व्यक्ति बैठा है। N, S के दाएँ से तीसरे स्थान पर बैठा है। E, R के बाएँ से तीसरे स्थान पर बैठा है। N, E के ठीक दाएँ बैठा है।
I, E का निकटतम पड़ोसी नहीं है।
I के दाएँ से गिनने पर I और W के बीच कितने व्यक्ति बैठे हैं?

(1) Four / चार
(2) **Three / तीन ✔**
(3) Two / दो
(4) One / एक

Q.7 C, O, B, R, A and S live on six different floors of the same building. The lowermost floor in the building is numbered 1, the floor above it, number 2 and so on till the topmost floor is numbered 6.
Only two people lives between B and S. Only C lives above A. R lives on an even numbered floor. B lives on the lowermost floor.
How many people live between O and C?

C, O, B, R, A और S एक ही इमारत की छह अलग-अलग मंजिलों पर रहते हैं। इमारत की सबसे निचली मंजिल की संख्या 1 है, उसके ऊपर की मंजिल की संख्या 2 है और इसी प्रकार सबसे ऊपरी मंजिल की संख्या 6 है।
B और S के बीच केवल दो व्यक्ति रहते हैं। A के ऊपर केवल C रहता है। R एक सम संख्या वाली मंजिल पर रहता है। B सबसे निचली मंजिल पर रहता है।
O और C के बीच कितने व्यक्ति रहते हैं?

(1) **Two / दो ✔**
(2) Three / तीन
(3) Four / चार
(4) One / एक

Q.8 In a certain code language, 'PACE' is coded as '1835' and 'CAME' is coded as '9315'. What is the code for 'M' in the given code language?

एक निश्चित कूट भाषा में, 'PACE' को '1835' के रूप में कूटबद्ध किया जाता है और 'CAME' को '9315' के रूप में कूटबद्ध किया जाता है। उस कूट भाषा में 'M' के लिए कूट क्या है?

(1) 1
(2) 3
(3) 8
(4) **9 ✔**

Q.9 S is the only daughter of T. T is married to U. V is the son of U. W is the brother of V. How is S related to W?

S, T की एकमात्र पुत्री है। T का विवाह U से हुआ है। V, U का पुत्र है। W, V का भाई है। S का W से क्या संबंध है?

(1) Sister's daughter / बहन की पुत्री
(2) Father's sister / पिता की बहन
(3) Mother's sister / माता की बहन
(4) **Sister / बहन ✔**

Q.10 Seven people F, G, H, Q, R, S and T are sitting in a straight line facing north. Only two people sit between T and R. R sits to the immediate left of H. Only two people sit to the right of H. Only two people sit between H and S. F sits to the immediate right of G. Who sits at third position from the left end of the line?

सात व्यक्ति F, G, H, Q, R, S और T एक सीधी पंक्ति में उत्तर की ओर मुख करके बैठे हैं। T और R के बीच केवल दो व्यक्ति बैठे हैं। R, H के ठीक बाएँ बैठा है। H के दाएँ केवल दो व्यक्ति बैठे हैं। H और S के बीच केवल दो व्यक्ति बैठे हैं। F, G के ठीक दाएँ बैठा है। पंक्ति के बाएँ छोर से तीसरे स्थान पर कौन बैठा है?

(1) G
(2) S
(3) T
(4) Q ✔

Q.11 Seven people, G, L, A, M, O, U and R are sitting in a row, facing north.
Only two people sit to the left of R. Only three people sit between R and L. U sits second to the right of R. Only two people sit between U and O. G sits at some place to the right of A but at some place to the left of M.
How many people sit to the right of G?

सात व्यक्ति, G, L, A, M, O, U और R एक पंक्ति में उत्तर की ओर मुख करके बैठे हैं।
R के बाएँ केवल दो व्यक्ति बैठे हैं। R और L के बीच केवल तीन व्यक्ति बैठे हैं। U, R के दाएँ से दूसरे स्थान पर बैठा है। U और O के बीच केवल दो व्यक्ति बैठे हैं। G, A के दाएँ किसी स्थान पर लेकिन M के बाएँ किसी स्थान पर बैठा है।
G के दाएँ कितने व्यक्ति बैठे हैं?

(1) Two / दो
(2) Three / तीन ✔
(3) Four / चार
(4) One / एक

Q.12 Dhruv ranked 9th from the bottom and 6th from the top in his class. How many students are there in his class?

ध्रुव अपनी कक्षा में नीचे से 9वें और ऊपर से 6वें स्थान पर था। उसकी कक्षा में कितने विद्यार्थी हैं?

(1) 12
(2) 13
(3) 14 ✔
(4) 11

Q.13 Refer to the following letter series and answer the question. Counting to be done from left to right only.
(Left) N A J K I A B C U E T X A I R A W U Q V S L (Right)
How many such vowels are there each of which is immediately preceded by a consonant and also immediately followed by a vowel?

निम्नलिखित अक्षर श्रृंखला को देखें और प्रश्न का उत्तर दें। गिनती केवल बाएँ से दाएँ की जानी है।
(बाएँ) N A J K I A B C U E T X A I R A W U Q V S L (दाएँ)
ऐसे कितने स्वर हैं जिनमें से प्रत्येक के ठीक पहले एक व्यंजन है और ठीक बाद एक स्वर भी है?

(1) None / कोई नहीं
(2) Two / दो
(3) One / एक
(4) Three / तीन ✔

Q.14 Each of P, I, C, T, U, R and E has an exam on a different day of a week starting from Monday and ending on Sunday of the same week. Only two people have exam between C and T. Only two people have exam between I and P. Only two people have exam between E and P. No one has exam after E. U has exam on one of the days before R. T has exam immediately after R. Who has exam on Wednesday?

P, I, C, T, U, R और E में से प्रत्येक की परीक्षा एक ही सप्ताह के सोमवार से शुरू होकर रविवार को समाप्त होने वाले सप्ताह के एक अलग-अलग दिन है। C और T के बीच केवल दो व्यक्तियों की परीक्षा है। I और P के बीच केवल दो व्यक्तियों की परीक्षा है। E और P के बीच केवल दो व्यक्तियों की परीक्षा है। E के बाद किसी की परीक्षा नहीं है। U की परीक्षा R से पहले के दिनों में से किसी एक दिन है। T की परीक्षा R के ठीक बाद है। बुधवार को किसकी परीक्षा है?

(1) P

(2) I

(3) C ✔

(4) T

Q.15 Refer to the following letter, symbol series and answer the question. Counting to be done from left to right only (Left) G € € R L $ Q € T $ W € Y B % J % I V % R © (Right)
How many such symbol are there each of which is immediately preceded by a letter and also immediately followed by a letter?

निम्नलिखित अक्षर, प्रतीक श्रृंखला को देखें और प्रश्न का उत्तर दें। गिनती केवल बाएँ से दाएँ की जानी है (बाएँ) G € € R L $ Q € T $ W € Y B % J % I V % R © (दाएँ)
ऐसे कितने प्रतीक हैं जिनमें से प्रत्येक के ठीक पहले एक अक्षर है और ठीक बाद भी एक अक्षर है?

(1) Seven / सात ✔

(2) Eight / आठ

(3) Six / छह

(4) Nine / नौ

Q.16 Refer to the following letter series and answer the question that follows. Counting to be done from left to right only.
(Left) B M I I Y D X E H R C I G J X Z A N T U E W (Right)
How many such consonants are there, each of which is immediately preceded by a consonant and also immediately followed by a vowel?

निम्नलिखित अक्षर श्रृंखला को देखें और उसके बाद दिए गए प्रश्न का उत्तर दें। गिनती केवल बाएँ से दाएँ की जानी है।
(बाएँ) B M I I Y D X E H R C I G J X Z A N T U E W (दाएँ)
ऐसे कितने व्यंजन हैं, जिनमें से प्रत्येक के ठीक पहले एक व्यंजन है और ठीक बाद एक स्वर भी है?

(1) Four / चार

(2) Five / पाँच ✔

(3) Seven / सात

(4) Six / छह

Q.17 Refer to the following series and answer the question (all numbers are single-digit numbers only) Counting to be done from left to right only.
(Left) 1 6 3 7 4 9 5 2 8 7 1 6 4 3 9 7 5 8 2 4 7 1 2 3 9 8 5 (Right)
How many such even digits are there each of which is immediately followed by an odd digit and also immediately preceded by another odd digit?

निम्नलिखित श्रृंखला को देखें और प्रश्न का उत्तर दें (सभी संख्याएँ केवल एक अंक वाली संख्याएँ हैं)। गिनती केवल बाएँ से दाएँ की जानी है।
(बाएँ) 1 6 3 7 4 9 5 2 8 7 1 6 4 3 9 7 5 8 2 4 7 1 2 3 9 8 5 (दाएँ)
ऐसे कितने सम अंक हैं जिनमें से प्रत्येक के ठीक बाद एक विषम अंक है और ठीक पहले भी एक अन्य विषम अंक है?

(1) Three / तीन
(2) Two / दो
(3) One / एक
(4) Four / चार ✔

Q.18 Refer to the following letter series and answer the question. Counting to be done from left to right only.
(Left) Y U J Z Z H U K X E Y K A O O E N W J (Right)
How many such vowels are there each of which is immediately preceded by a consonant and also immediately followed by a vowel ?

निम्नलिखित अक्षर श्रृंखला को देखें और प्रश्न का उत्तर दें। गिनती केवल बाएँ से दाएँ की जानी है।
(बाएँ) Y U J Z Z H U K X E Y K A O O E N W J (दाएँ)
ऐसे कितने स्वर हैं जिनमें से प्रत्येक के ठीक पहले एक व्यंजन है और ठीक बाद एक स्वर भी है?

(1) Four / चार
(2) Three / तीन
(3) One / एक ✔
(4) Two / दो

Q.19 W,I,N,T,E,R and S are sitting around a circular table facing the centre of the table.
Only one person sits between I and N when counted from the left of N. W sits third to the right of S. R sits third to the left of E. W sits to the immediate right of R. T is not an immediate neighbor of R.
Who sits second to the left of I?

W,I,N,T,E,R और S एक वृत्ताकार मेज के चारों ओर मेज के केंद्र की ओर मुख करके बैठे हैं।
N के बाएँ से गिनने पर I और N के बीच केवल एक व्यक्ति बैठा है। W, S के दाएँ से तीसरे स्थान पर बैठा है। R, E के बाएँ से तीसरे स्थान पर बैठा है। W, R के ठीक दाएँ बैठा है। T, R का निकटतम पड़ोसी नहीं है।
I के बाएँ से दूसरे स्थान पर कौन बैठा है?

(1) E
(2) R
(3) W
(4) T ✔

Q.20 In a certain code language, 'CRAB' is coded as '8147' and 'CRAM' is coded as '4851'. What is the code for 'M' in the given code language?

एक निश्चित कूट भाषा में, 'CRAB' को '8147' के रूप में कूटबद्ध किया जाता है और 'CRAM' को '4851' के रूप में कूटबद्ध किया जाता है। उस कूट भाषा में 'M' के लिए कूट क्या है?

(1) 1
(2) 8
(3) 5 ✔
(4) 4

Q.21 In the following triad, each group of letters is related to the subsequent one following a certain logic. Select from the given options, the one that follows the same logic.
CARS - ARCS - SRAC DAKE - AKDE - EKAD

निम्नलिखित त्रय में, अक्षरों का प्रत्येक समूह एक निश्चित तर्क का अनुसरण करते हुए अपने बाद वाले समूह से संबंधित है। दिए गए विकल्पों में से उस विकल्प का चयन करें जो समान तर्क का अनुसरण करता है।
CARS - ARCS - SRAC DAKE - AKDE - EKAD

(1) GIND - INGD - INDG
(2) POST - PSOT - TSOP
(3) WALK - AWLK - KALW
(4) **FEAT - EAFT - TAEF ✔**

Q.22 9 is related to 22 following a certain logic. Following the same logic, 13 is related to 30. To which of the following is 17 related, following the same logic?
(NOTE: Operations should be performed on the whole numbers, without breaking down the numbers into their constituent digits. E.g. 13 – Operations on 13 such as adding/subtracting/multiplying to 13 can be performed. Breaking down 13 into 1 and 3 and then performing mathematical operations on 1 and 3 is not allowed.)

9 एक निश्चित तर्क का अनुसरण करते हुए 22 से संबंधित है। उसी तर्क का अनुसरण करते हुए, 13, 30 से संबंधित है। उसी तर्क का अनुसरण करते हुए, 17 निम्नलिखित में से किससे संबंधित है?
(नोट: संक्रियाएँ संख्याओं को उनके घटक अंकों में तोड़े बिना, पूर्ण संख्याओं पर की जानी चाहिए। उदाहरण के लिए 13 – 13 पर संक्रियाएँ जैसे 13 में जोड़ना/घटाना/गुणा करना आदि की जा सकती हैं। 13 को 1 और 3 में तोड़ना और फिर 1 और 3 पर गणितीय संक्रियाएँ करना वर्जित है।)

(1) **38 ✔**
(2) 50
(3) 46
(4) 42

Q.23 Based on the alphabetical order, three of the following four are alike in a certain way and thus form a group. Which is the one that does not belong to that group?
(Note: The odd man out is not based on the number of consonants/vowels or their position in the letter cluster)

अंग्रेज़ी वर्णमाला क्रम के आधार पर, निम्नलिखित चार में से तीन किसी निश्चित प्रकार से एक समान हैं और इस प्रकार एक समूह बनाते हैं। वह कौन-सा है जो उस समूह से संबंधित नहीं है?
(नोट: असंगत का चयन व्यंजनों/स्वरों की संख्या या अक्षर-समूह में उनके स्थान पर आधारित नहीं है)

(1) PRM
(2) IKF
(3) **DLP ✔**
(4) SUP

Q.24 If 1 is added to each odd digit and 2 is subtracted from each even digit in the number 6178325, what will be the sum of the digits which are second from the left and third from the right?

यदि संख्या 6178325 में प्रत्येक विषम अंक में 1 जोड़ा जाए और प्रत्येक सम अंक में से 2 घटाया जाए, तो बाएँ से दूसरे और दाएँ से तीसरे अंकों का योग क्या होगा?

(1) 5
(2) 4
(3) **6 ✔**
(4) 7

Q.25 What will come in the place of '?' in the following equation, if '+' and '–' are interchanged and '×' and '÷' are interchanged?
79 + 7 ÷ 9 – 98 × 7 = ?
यदि '+' और '–' को आपस में बदल दिया जाए तथा '×' और '÷' को आपस में बदल दिया जाए, तो निम्नलिखित समीकरण में '?' के स्थान पर क्या आएगा?
79 + 7 ÷ 9 – 98 × 7 = ?

(1) 28
(2) 26
(3) 30 ✔
(4) 33

Q.26 What should come in place of ? in the given series based on the English alphabetical order?
ZXW YWV XVU WUT ?
अंग्रेज़ी वर्णमाला क्रम के आधार पर दी गई श्रृंखला में ? के स्थान पर क्या आना चाहिए?
ZXW YWV XVU WUT ?

(1) VTS ✔
(2) VWY
(3) VSR
(4) VUR

Q.27 Based on the English alphabetical order, three of the following four letter cluster pairs are alike in a certain way and thus form a group. Which is the one that does not belong to that group?
(Note: The odd one out is not based on the number of consonants/vowels or their position in the letter cluster)
अंग्रेज़ी वर्णमाला क्रम के आधार पर, निम्नलिखित चार अक्षर-समूह युग्मों में से तीन किसी निश्चित प्रकार से एक समान हैं और इस प्रकार एक समूह बनाते हैं। वह कौन-सा है जो उस समूह से संबंधित नहीं है?
(नोट: असंगत का चयन व्यंजनों/स्वरों की संख्या या अक्षर-समूह में उनके स्थान पर आधारित नहीं है)

(1) CA–BZ
(2) US–TR
(3) PN–OM
(4) QO–OP ✔

Q.28 Based on the English alphabetical order, three of the following four letter cluster pairs are alike in a certain way and thus form a group. Which is the one that does not belong to that group?
(Note: The odd man out is not based on the number of consonants/vowels or their position in the letter cluster)
अंग्रेज़ी वर्णमाला क्रम के आधार पर, निम्नलिखित चार अक्षर-समूह युग्मों में से तीन किसी निश्चित प्रकार से एक समान हैं और इस प्रकार एक समूह बनाते हैं। वह कौन-सा है जो उस समूह से संबंधित नहीं है?
(नोट: असंगत का चयन व्यंजनों/स्वरों की संख्या या अक्षर-समूह में उनके स्थान पर आधारित नहीं है)

(1) XL - BP
(2) FA - JG ✔
(3) JC - NG
(4) ZR - DV

Q.29 Select the correct mirror image of the given figure when the mirror is placed at PQ as shown below.



जब दर्पण को नीचे दर्शाए अनुसार PQ पर रखा जाता है, तो दी गई आकृति के सही दर्पण प्रतिबिंब का चयन करें।

(1) 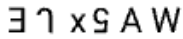

(2) 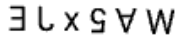

(3) 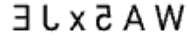 ✔

(4) 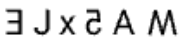

Q.30 Select the pair which follows the same pattern as that followed by the two set of pairs given below. Both pairs follow the same pattern.

LIF−BYV GDA−WTQ

उस युग्म का चयन करें जो उसी पैटर्न का अनुसरण करता है जिसका अनुसरण नीचे दिए गए युग्मों के दो समूह करते हैं। दोनों युग्म एक ही पैटर्न का अनुसरण करते हैं।

LIF−BYV GDA−WTQ

(1) WTQ−LJF

(2) WSO−MJG

(3) WSO−LIF

(4) **WTQ−MJG** ✔

Q.31 If 'A' stands for '÷', 'B' stands for '×', 'C' stands for '+' and 'D' stands for '−', what will come in place of the question mark '?' in the following equation?

9 A 12 B 44 D 44 C 24 = ?

यदि 'A' का अर्थ '÷' है, 'B' का अर्थ '×' है, 'C' का अर्थ '+' है और 'D' का अर्थ '−' है, तो निम्नलिखित समीकरण में प्रश्नचिह्न '?' के स्थान पर क्या आएगा?

9 A 12 B 44 D 44 C 24 = ?

(1) 11

(2) 15

(3) 14

(4) **13** ✔

QuickSarkari.com | WhatsApp Channel | Telegram: t.me/quick_sarkari

Q.32 Select the set in which the numbers are related in the same way as are the numbers of the following sets.
(NOTE: Operations should be performed on the whole numbers, without breaking down the numbers into its constituent digits. E.g. 13 – Operations on 13 such as adding / subtracting /multiplying etc. to 13 can be performed. Breaking down 13 into 1 and 3 and then performing mathematical operations on 1 and 3 is not allowed.)
(5, 11, 7)
(9, 19, 15)

उस समुच्चय का चयन करें जिसमें संख्याएँ उसी प्रकार संबंधित हैं जिस प्रकार निम्नलिखित समुच्चयों की संख्याएँ संबंधित हैं।
(नोट: संक्रियाएँ संख्याओं को उनके घटक अंकों में तोड़े बिना, पूर्ण संख्याओं पर की जानी चाहिए। उदाहरण के लिए 13 – 13 पर संक्रियाएँ जैसे 13 में जोड़ना/घटाना/गुणा करना आदि की जा सकती हैं। 13 को 1 और 3 में तोड़ना और फिर 1 और 3 पर गणितीय संक्रियाएँ करना वर्जित है।)
(5, 11, 7)
(9, 19, 15)

(1) (12, 25, 21) ✔
(2) (8, 14, 10)
(3) (7, 13, 9)
(4) (11, 21, 17)

Q.33 TVXV is related to XZBZ in a certain way based on the English alphabetical order.
In the same way, HJLJ is related to LNPN. To which of the following is EGIG related to, following the same logic?

अंग्रेज़ी वर्णमाला क्रम के आधार पर TVXV एक निश्चित प्रकार से XZBZ से संबंधित है।
उसी प्रकार, HJLJ, LNPN से संबंधित है। उसी तर्क का अनुसरण करते हुए, EGIG निम्नलिखित में से किससे संबंधित है?

(1) IKLK
(2) ILLP
(3) IKMK ✔
(4) IJLK

Q.34 Select the pair which follows the same pattern as that followed by the two set of pairs given below.
Both pairs follow the same pattern.
FNS : BJO XNH : TJD

उस युग्म का चयन करें जो उसी पैटर्न का अनुसरण करता है जिसका अनुसरण नीचे दिए गए युग्मों के दो समूह करते हैं। दोनों युग्म एक ही पैटर्न का अनुसरण करते हैं।
FNS : BJO XNH : TJD

(1) DNS :BLQ
(2) GOU : CMR
(3) EOT : ISX
(4) EOT : AKP ✔

Q.35 14 is related to 392 following a certain logic. Following the same logic, 18 is related to 648. To which of the following is 24 related, following the same logic?
(NOTE: Operations should be performed on the whole numbers, without breaking down the numbers into its constituent digits. E.g. 13 – Operations on 13 such as adding /subtracting /multiplying etc. to 13 can be performed. Breaking down 13 into 1 and 3 and then performing mathematical operations on 1 and 3 is not allowed.)

14 एक निश्चित तर्क का अनुसरण करते हुए 392 से संबंधित है। उसी तर्क का अनुसरण करते हुए, 18, 648 से संबंधित है। उसी तर्क का अनुसरण करते हुए, 24 निम्नलिखित में से किससे संबंधित है?
(नोट: संक्रियाएँ संख्याओं को उनके घटक अंकों में तोड़े बिना, पूर्ण संख्याओं पर की जानी चाहिए। उदाहरण के लिए 13 – 13 पर संक्रियाएँ जैसे 13 में जोड़ना/घटाना/गुणा करना आदि की जा सकती हैं। 13 को 1 और 3 में तोड़ना और फिर 1 और 3 पर गणितीय संक्रियाएँ करना वर्जित है।)

(1) 1622
(2) 1782
(3) 1842
(4) **1152 ✔**

Q.36 What should come in place of ? in the given series based on the English alphabetical order?
TUS RSQ PQO NOM ?

अंग्रेज़ी वर्णमाला क्रम के आधार पर दी गई श्रृंखला में ? के स्थान पर क्या आना चाहिए?
TUS RSQ PQO NOM ?

(1) LKM
(2) **LMK ✔**
(3) KLM
(4) KML

Q.37 6 is related to 19 following a certain logic. Following the same logic, 11 is related to 29. To which of the following is 17 related, following the same logic?
(NOTE: Operations should be performed on the whole numbers, without breaking down the numbers into their constituent digits. E.g. 13 – Operations on 13 such as adding/subtracting/multiplying to 13 can be performed. Breaking down 13 into 1 and 3 and then performing mathematical operations on 1 and 3 is not allowed.)

6 एक निश्चित तर्क का अनुसरण करते हुए 19 से संबंधित है। उसी तर्क का अनुसरण करते हुए, 11, 29 से संबंधित है। उसी तर्क का अनुसरण करते हुए, 17 निम्नलिखित में से किससे संबंधित है?
(नोट: संक्रियाएँ संख्याओं को उनके घटक अंकों में तोड़े बिना, पूर्ण संख्याओं पर की जानी चाहिए। उदाहरण के लिए 13 – 13 पर संक्रियाएँ जैसे 13 में जोड़ना/घटाना/गुणा करना आदि की जा सकती हैं। 13 को 1 और 3 में तोड़ना और फिर 1 और 3 पर गणितीय संक्रियाएँ करना वर्जित है।)

(1) 70
(2) **41 ✔**
(3) 47
(4) 52

Q.38 What will come in the place of '?' in the following equation if '+' and '-' are interchanged and 'x' and '÷' are interchanged?

46 × 8 ÷ 20 - 11 + 33 = ?

यदि '+' और '-' को आपस में बदल दिया जाए तथा 'x' और '÷' को आपस में बदल दिया जाए, तो निम्नलिखित समीकरण में '?' के स्थान पर क्या आएगा?

46 × 8 ÷ 20 - 11 + 33 = ?

(1) 93 ✔

(2) 95

(3) 91

(4) 94

Q.39 Identify the figure given in the options which when put in place of ? will logically complete the series.

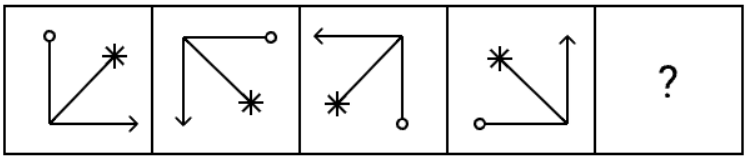

विकल्पों में दी गई उस आकृति की पहचान करें जिसे ? के स्थान पर रखने पर श्रृंखला तार्किक रूप से पूरी हो जाएगी।

(1) 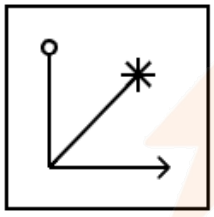

✔

(2) 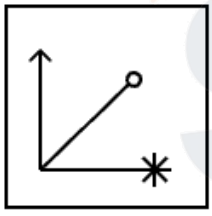

(3) 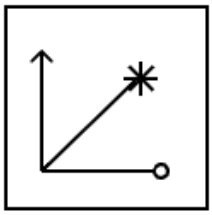

(4) 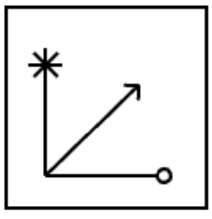

Quick Sarkari

Q.40 Below are given two sets of numbers. In each set of numbers, a certain mathematical operation on the first number results in the second number.
Similarly, certain mathematical operation on the second number results in the third number and so on.
Which of the given options follows the same set of operations as in question?
(NOTE – A two/three digit number cannot be broken into individual digits for operations e.g. if 37 is followed by 10, the operation cannot be 3+7 as a two-digit number cannot be broken into individual digits.)
18 – 54 – 79 – 237; 23 – 69 – 94 – 282
नीचे संख्याओं के दो समुच्चय दिए गए हैं। संख्याओं के प्रत्येक समुच्चय में, पहली संख्या पर एक निश्चित गणितीय संक्रिया करने पर दूसरी संख्या प्राप्त होती है।
इसी प्रकार, दूसरी संख्या पर एक निश्चित गणितीय संक्रिया करने पर तीसरी संख्या प्राप्त होती है और इसी प्रकार आगे भी। दिए गए विकल्पों में से कौन-सा विकल्प प्रश्न में दिए गए संक्रियाओं के समुच्चय का ही अनुसरण करता है?
(नोट – दो/तीन अंकों की संख्या को संक्रियाओं के लिए अलग-अलग अंकों में नहीं तोड़ा जा सकता, उदाहरण के लिए यदि 37 के बाद 10 आता है, तो संक्रिया 3+7 नहीं हो सकती क्योंकि दो अंकों की संख्या को अलग-अलग अंकों में नहीं तोड़ा जा सकता।)
18 – 54 – 79 – 237; 23 – 69 – 94 – 282

(1) 14 – 42 – 67 – 201 ✔
(2) 12 – 36 – 65 – 195
(3) 20 – 60 – 95 – 285
(4) 28 – 84 – 104 – 312

General Awareness

Q.41 What was the main reason behind the Santhal Rebellion of 1855–56?
1855–56 के संथाल विद्रोह के पीछे मुख्य कारण क्या था?

(1) Demand for political representation in British councils / ब्रिटिश परिषदों में राजनीतिक प्रतिनिधित्व की माँग
(2) Protest against railway construction in tribal areas / जनजातीय क्षेत्रों में रेलवे निर्माण का विरोध
(3) Resistance to exploitation by moneylenders and landlords / साहूकारों और जमींदारों द्वारा शोषण का प्रतिरोध ✔
(4) Opposition to the introduction of English education / अंग्रेज़ी शिक्षा की शुरुआत का विरोध

Q.42 Which princely state, ruled by Nawab Muhammad Mahabat Khan III, decided to accede to Pakistan after India gained independence in 1947?
1947 में भारत को स्वतंत्रता मिलने के बाद नवाब मुहम्मद महाबत खान तृतीय द्वारा शासित किस रियासत ने पाकिस्तान में विलय का निर्णय लिया था?

(1) Baroda / बड़ौदा
(2) Junagadh / जूनागढ़ ✔
(3) Mysore / मैसूर
(4) Kashmir / कश्मीर

Q.43 Which House of the State Legislature is known as the Legislative Assembly and is the popular, directly elected House?
राज्य विधानमंडल के किस सदन को विधानसभा के रूप में जाना जाता है और यह लोकप्रिय, प्रत्यक्ष रूप से निर्वाचित सदन है?

(1) Vidhan Sabha / विधान सभा ✔
(2) Vidhan Parishad / विधान परिषद
(3) Zila Parishad / जिला परिषद
(4) Rajya Sabha / राज्य सभा

Q.44 Who is the real executive authority in the Union Government and acts as the head of the Council of Ministers?

केंद्र सरकार में वास्तविक कार्यकारी प्राधिकारी कौन होता है और मंत्रिपरिषद के प्रमुख के रूप में कार्य करता है?

(1) The Prime Minister / प्रधानमंत्री ✔

(2) The President of India / भारत के राष्ट्रपति

(3) The Vice-President of India / भारत के उपराष्ट्रपति

(4) The Speaker of the Lok Sabha / लोकसभा अध्यक्ष

Q.45 Market Equilibrium is achieved when _____.

बाज़ार संतुलन तब प्राप्त होता है जब _____।

(1) Quantity demanded equals quantity supplied at the prevailing price / प्रचलित कीमत पर माँगी गई मात्रा, आपूर्ति की गई मात्रा के बराबर होती है ✔

(2) Consumers are willing to pay the highest possible price / उपभोक्ता अधिकतम संभव कीमत चुकाने के लिए तैयार होते हैं

(3) Quantity demanded exceeds quantity supplied at the prevailing price / प्रचलित कीमत पर माँगी गई मात्रा, आपूर्ति की गई मात्रा से अधिक होती है

(4) Quantity supplied exceeds quantity demanded at the prevailing price / प्रचलित कीमत पर आपूर्ति की गई मात्रा, माँगी गई मात्रा से अधिक होती है

Q.46 How does uneven heating of the Earth's surface contribute to rainfall patterns?

पृथ्वी की सतह का असमान रूप से गर्म होना वर्षा के प्रतिरूप में किस प्रकार योगदान देता है?

(1) It creates pressure differences that drive moist winds / यह दाब में अंतर उत्पन्न करता है जो नम पवनों को संचालित करता है ✔

(2) It directly converts water vapour into clouds / यह जलवाष्प को सीधे बादलों में परिवर्तित कर देता है

(3) It reduces evaporation from oceans / यह महासागरों से वाष्पीकरण को कम करता है

(4) It prevents condensation from occurring / यह संघनन को होने से रोकता है

Q.47 How can a deficit in the current account be represented?

चालू खाते में घाटे को किस रूप में दर्शाया जा सकता है?

(1) Receipts = 0 = Payments / प्राप्तियाँ = 0 = भुगतान

(2) Receipts = Payments / प्राप्तियाँ = भुगतान

(3) Receipts < Payments / प्राप्तियाँ < भुगतान ✔

(4) Receipts > Payments / प्राप्तियाँ > भुगतान

Q.48 Which geographical characteristic most effectively differentiates the Eastern Coastal Plains from the Western Coastal Plains of India?

कौन-सी भौगोलिक विशेषता भारत के पूर्वी तटीय मैदानों को पश्चिमी तटीय मैदानों से सबसे प्रभावी रूप से अलग करती है?

(1) The eastern coast is wider and shaped by extensive deltaic formations / पूर्वी तट अधिक चौड़ा है और विस्तृत डेल्टाई संरचनाओं द्वारा निर्मित है ✔

(2) The eastern coast is fragmented and discontinuous / पूर्वी तट खंडित और असतत है

(3) The western coast is primarily influenced by river deposition / पश्चिमी तट मुख्य रूप से नदी निक्षेपण से प्रभावित है

(4) The western coast occupies a larger surface area / पश्चिमी तट अधिक सतही क्षेत्रफल घेरता है

Q.49 The pre-monsoon showers called 'Mango showers' are seen in which of the following states in India?

'आम्र वर्षा' (मैंगो शावर) कहलाने वाली मानसून-पूर्व वर्षा भारत के निम्नलिखित में से किस राज्य में देखी जाती है?

(1) Jammu and Kashmir / जम्मू और कश्मीर

(2) Sikkim / सिक्किम

(3) Gujarat / गुजरात

(4) **Kerala / केरल ✔**

Q.50 Which of the following is a key component used to calculate the Human Development Index (HDI), demonstrating the link between growth and people's well-being?

निम्नलिखित में से कौन-सा मानव विकास सूचकांक (HDI) की गणना में प्रयुक्त एक प्रमुख घटक है, जो संवृद्धि और लोगों के कल्याण के बीच संबंध को दर्शाता है?

(1) Literacy rate of the adult population / वयस्क जनसंख्या की साक्षरता दर

(2) Average years of schooling / स्कूली शिक्षा के औसत वर्ष

(3) **Gross National Income (GNI) per capita / प्रति व्यक्ति सकल राष्ट्रीय आय (GNI) ✔**

(4) Life expectancy at birth / जन्म के समय जीवन प्रत्याशा

Q.51 The Sannyasi–Fakir Rebellion began soon after which major event in Bengal?

संन्यासी–फकीर विद्रोह बंगाल की किस प्रमुख घटना के तुरंत बाद शुरू हुआ था?

(1) Permanent Settlement of 1793 / 1793 का स्थायी बंदोबस्त

(2) Great flood of 1765 / 1765 की भीषण बाढ़

(3) **Famine of 1770 / 1770 का अकाल ✔**

(4) Palashi Battle of 1757 / 1757 का पलासी का युद्ध

Q.52 The President of India can seek the opinion of the Supreme Court on any question of law or fact of public importance. This power is known as the Supreme Court's _____.

भारत के राष्ट्रपति सार्वजनिक महत्व के किसी भी विधि या तथ्य के प्रश्न पर सर्वोच्च न्यायालय की राय ले सकते हैं। इस शक्ति को सर्वोच्च न्यायालय का _____ कहा जाता है।

(1) Writ Jurisdiction / रिट क्षेत्राधिकार

(2) Appellate Jurisdiction / अपीलीय क्षेत्राधिकार

(3) **Advisory Jurisdiction / सलाहकारी क्षेत्राधिकार ✔**

(4) Review Jurisdiction / पुनरीक्षण क्षेत्राधिकार

Q.53 The six Fundamental Rights guaranteed to the citizens are enshrined in which part of the Indian Constitution?

नागरिकों को प्रत्याभूत छह मौलिक अधिकार भारतीय संविधान के किस भाग में निहित हैं?

(1) Part I / भाग I

(2) Part IV / भाग IV

(3) **Part III / भाग III ✔**

(4) Part II / भाग II

Q.54 Which of the following statements is correct about the award of a Lok Adalat?

लोक अदालत के निर्णय के बारे में निम्नलिखित में से कौन-सा कथन सही है?

(1) It is binding only when it is confirmed by the Supreme Court. / यह तभी बाध्यकारी होता है जब सर्वोच्च न्यायालय द्वारा इसकी पुष्टि की जाती है।

(2) If any party is dissatisfied, its award can be challenged in the High Court. / यदि कोई पक्ष असंतुष्ट है, तो इसके फैसले को उच्च न्यायालय में चुनौती दी जा सकती है।

(3) The award is advisory and is not legally binding. / निर्णय, सलाहकारी होता है और कानूनी रूप से बाध्यकारी नहीं होता है।

(4) It is final and legally binding on all parties like a decree of a civil court. / यह अंतिम होता है और दीवानी अदालत के फैसले की तरह सभी पक्षों पर कानूनी रूप से बाध्यकारी होता है। ✔

Q.55 What was the primary purpose of the English East India Company when it was formed?

अंग्रेज़ी ईस्ट इंडिया कंपनी का गठन होने के समय उसका प्राथमिक उद्देश्य क्या था?

(1) To establish political rule in India / भारत में राजनीतिक शासन स्थापित करना

(2) To defeat the Mughal Empire / मुगल साम्राज्य को पराजित करना

(3) To promote trade with the East / पूर्व के साथ व्यापार को बढ़ावा देना ✔

(4) To spread Christianity / ईसाई धर्म का प्रसार करना

Q.56 Who was the first European to reach India by an all-sea route?

पूर्णतः समुद्री मार्ग से भारत पहुँचने वाला पहला यूरोपीय कौन था?

(1) Ferdinand Magellan / फर्डिनेंड मैगलन

(2) Pedro Álvares Cabral / पेड्रो अल्वारेस कैब्रल

(3) Vasco da Gama / वास्को डी गामा ✔

(4) Christopher Columbus / क्रिस्टोफर कोलंबस

Q.57 Which of the following is the role of exchange rate in an open economy?

एक खुली अर्थव्यवस्था में विनिमय दर की भूमिका निम्नलिखित में से कौन-सी है?

(1) Regulating the government spending / सरकारी व्यय का विनियमन करना

(2) Influencing the international trade and capital flows / अंतर्राष्ट्रीय व्यापार और पूँजी प्रवाह को प्रभावित करना ✔

(3) Controlling the interest rates / ब्याज दरों को नियंत्रित करना

(4) Determining the rate of inflation / मुद्रास्फीति की दर का निर्धारण करना

Q.58 Which indicator best reflects the educational attainment of a population aged seven years and above in India?

कौन-सा संकेतक भारत में सात वर्ष और उससे अधिक आयु की जनसंख्या की शैक्षिक उपलब्धि को सबसे अच्छी तरह दर्शाता है?

(1) Population density / जनसंख्या घनत्व

(2) Literacy rate / साक्षरता दर ✔

(3) Gross enrolment ratio / सकल नामांकन अनुपात

(4) Dependency ratio / निर्भरता अनुपात

Q.59 What was the most significant change introduced by the 1991 economic reforms regarding the Industrial Sector?

औद्योगिक क्षेत्र के संबंध में 1991 के आर्थिक सुधारों द्वारा लाया गया सबसे महत्वपूर्ण परिवर्तन क्या था?

(1) Permanent ban on all private investment in the economy. / अर्थव्यवस्था में सभी निजी निवेशों पर स्थायी प्रतिबंध।

(2) **Abolition of Industrial Licensing for most industries. / अधिकांश उद्योगों के लिए औद्योगिक लाइसेंसिंग की समाप्ति। ✔**

(3) Complete government control over all industries. / सभी उद्योगों पर पूर्ण सरकारी नियंत्रण।

(4) Mandatory nationalization of all foreign companies. / सभी विदेशी कंपनियों का अनिवार्य राष्ट्रीयकरण।

Q.60 Which geographical feature most distinctly characterises the Malabar Coast of India?

कौन-सी भौगोलिक विशेषता भारत के मालाबार तट की सबसे विशिष्ट पहचान है?

(1) **Backwaters and lagoons / पश्चजल (बैकवॉटर) और लैगून ✔**

(2) Fjords / फियोर्ड

(3) Glacial valleys / हिमनदीय घाटियाँ

(4) Barchans / बरखान

Q.61 Ministry of Youth Affairs and Sports aims to play a crucial role in youth development and sports promotion, aiming to steer the nation towards _____.

युवा कार्यक्रम और खेल मंत्रालय का लक्ष्य युवा विकास और खेल संवर्धन में महत्वपूर्ण भूमिका निभाना है, जिसका उद्देश्य राष्ट्र को _____ की ओर अग्रसर करना है।

(1) Digital India 2045 / डिजिटल इंडिया 2045

(2) Skill India 2050 / स्किल इंडिया 2050

(3) **Viksit Bharat by 2047 / 2047 तक विकसित भारत ✔**

(4) Make in India 2035 / मेक इन इंडिया 2035

Q.62 Cream obtained from milk is primarily rich in which component?

दूध से प्राप्त क्रीम मुख्य रूप से किस घटक से भरपूर होती है?

(1) Milk sugar / दुग्ध शर्करा

(2) Milk proteins / दुग्ध प्रोटीन

(3) **Milk fat / दुग्ध वसा ✔**

(4) Milk minerals / दुग्ध खनिज

Q.63 According to the Periodic Labour Force Survey (PLFS) monthly estimates for August 2025, which of the following trends was observed at the all-India level between June and August 2025?

अगस्त 2025 के आवधिक श्रम बल सर्वेक्षण (PLFS) के मासिक अनुमानों के अनुसार, जून और अगस्त 2025 के बीच अखिल भारतीय स्तर पर निम्नलिखित में से कौन-सी प्रवृत्ति देखी गई?

(1) **Both the Labour Force Participation Rate (LFPR) and the Worker Population Ratio (WPR) increased / श्रम बल भागीदारी दर (LFPR) और श्रमिक जनसंख्या अनुपात (WPR) दोनों में वृद्धि हुई ✔**

(2) Both the Labour Force Participation Rate (LFPR) and the Worker Population Ratio (WPR) declined / श्रम बल भागीदारी दर (LFPR) और श्रमिक जनसंख्या अनुपात (WPR) दोनों में गिरावट आई

(3) The Labour Force Participation Rate (LFPR) increased while the Worker Population Ratio (WPR) declined / श्रम बल भागीदारी दर (LFPR) में वृद्धि हुई जबकि श्रमिक जनसंख्या अनुपात (WPR) में गिरावट आई

(4) The Worker Population Ratio (WPR) grew, and the Labor Force Participation Rate (LFPR) stayed unchanged / श्रमिक जनसंख्या अनुपात (WPR) में वृद्धि हुई, और श्रम बल भागीदारी दर (LFPR) अपरिवर्तित रही

Q.64 Who is the youngest recipient of Grammy awards, from India, till 2023?

2023 तक, भारत से ग्रैमी पुरस्कार प्राप्त करने वाले सबसे कम उम्र के व्यक्ति कौन हैं?

(1) Zubin Mehta / ज़ुबिन मेहता

(2) **Rickey Kej / रिकी केज ✔**

(3) Tanvi Shah / तन्वी शाह

(4) T.M.Krishna / टी.एम. कृष्णा

Q.65 Which of the following statements is INCORRECT regarding fats?

वसा के संबंध में निम्नलिखित में से कौन-सा कथन गलत है?

(1) Cholesterol is the source of derived lipid. / कोलेस्ट्रॉल व्युत्पन्न लिपिड का स्रोत है।

(2) Fats and oils are concentrated sources of energy. / वसा और तेल ऊर्जा के सांद्र स्रोत हैं।

(3) **Triglycerides are the source of compound lipid. / ट्राइग्लिसराइड्स यौगिक लिपिड का स्रोत हैं। ✔**

(4) Fats are substances that our body stores for future use. / वसा ऐसे पदार्थ हैं जिन्हें हमारा शरीर भविष्य में उपयोग के लिए संग्रहित करता है।

Q.66 Who is appointed as the New Chairman of the Insurance Regulatory and Development Authority of India in July 2025?

जुलाई 2025 में भारतीय बीमा विनियामक और विकास प्राधिकरण के नए अध्यक्ष के रूप में किसे नियुक्त किया गया है?

(1) Shri Pramod Kumar Arora / श्री प्रमोद कुमार अरोड़ा

(2) **Shri Ajay Seth / श्री अजय सेठ ✔**

(3) Smt Shalini Pandit / श्रीमती शालिनी पंडित

(4) Shri Debasish Panda / श्री देबाशीष पांडा

Q.67 In which field event did Kenya's Faith Kipyegon set a world record at the Wanda Diamond League meeting in Eugene in July 2025?

जुलाई 2025 में यूजीन में आयोजित वांडा डायमंड लीग प्रतियोगिता में केन्या की फेथ किपयेगॉन ने किस फील्ड स्पर्धा में विश्व रिकॉर्ड बनाया?

(1) 5000 m

(2) 2000 m

(3) **1500 m ✔**

(4) 800 m

Q.68 Which Bill prohibits harmful online money gaming services, advertisements, and financial transactions related to them?

कौन-सा विधेयक हानिकारक ऑनलाइन मनी गेमिंग सेवाओं, विज्ञापनों और उनसे संबंधित वित्तीय लेन-देन को प्रतिबंधित करता है?

(1) The National Digital Betting and Games Bill, 2025 / राष्ट्रीय डिजिटल सट्टेबाज़ी और खेल विधेयक, 2025

(2) **Promotion and Regulation of Online Gaming Bill, 2025 / ऑनलाइन गेमिंग संवर्धन और विनियमन विधेयक, 2025 ✔**

(3) The Digital Gaming and Betting Prohibition Bill, 2025 / डिजिटल गेमिंग और सट्टेबाज़ी निषेध विधेयक, 2025

(4) The Online Gambling Control Bill, 2025 / ऑनलाइन जुआ नियंत्रण विधेयक, 2025

Q.69 Elements in the same Group (vertical column) of the periodic table share similar properties because they have the same number of _____.

आवर्त सारणी के एक ही समूह (ऊर्ध्वाधर स्तंभ) के तत्वों के गुण समान होते हैं क्योंकि उनमें _____ की संख्या समान होती है।

(1) Neutrons / न्यूट्रॉन

(2) Valence electrons / संयोजकता इलेक्ट्रॉन ✔

(3) Protons / प्रोटॉन

(4) Total electrons / कुल इलेक्ट्रॉन

Q.70 Who was appointed as the 53rd Chief Justice of India?

भारत के 53वें मुख्य न्यायाधीश के रूप में किसे नियुक्त किया गया?

(1) Justice Surya Kant / न्यायमूर्ति सूर्य कांत ✔

(2) Justice Dhananjaya Y Chandrachud / न्यायमूर्ति धनंजय वाई. चंद्रचूड़

(3) Justice Sanjiv Khanna / न्यायमूर्ति संजीव खन्ना

(4) Justice BV Nagarathna / न्यायमूर्ति बी.वी. नागरत्ना

Q.71 Who was appointed as the Chief Executive Officer of Coal India Limited (CIL) in December 2025?

दिसंबर 2025 में कोल इंडिया लिमिटेड (CIL) के मुख्य कार्यकारी अधिकारी के रूप में किसे नियुक्त किया गया?

(1) Dr Rajiv Mani / डॉ. राजीव मणि

(2) B Sairam / बी. साईराम ✔

(3) Dheeraj Mittal / धीरज मित्तल

(4) B.P. Dubey / बी.पी. दुबे

Q.72 Amid fresh turmoil in Bangladesh and persistent threat from China in 2025, India has strengthened its eastern defences with three new garrisons for:

2025 में बांग्लादेश में नई अशांति और चीन से लगातार खतरे के बीच, भारत ने तीन नई छावनियों के साथ अपनी पूर्वी रक्षा को किसके लिए मज़बूत किया है?

(1) Palk Strait / पाक जलडमरूमध्य

(2) Deesa Sector / डीसा सेक्टर

(3) Siliguri Corridor / सिलीगुड़ी कॉरिडोर ✔

(4) Ladakh Plateau / लद्दाख पठार

Q.73 At the 2025 World Economic Forum, which former footballer was honoured with a Crystal Award for humanitarian work?

2025 के विश्व आर्थिक मंच में, किस पूर्व फुटबॉलर को मानवीय कार्यों के लिए क्रिस्टल पुरस्कार से सम्मानित किया गया?

(1) Clarence Seedorf / क्लेरेंस सीडॉर्फ

(2) Zinedine Zidane / ज़िनेदिन ज़िदान

(3) David Beckham / डेविड बेकहम ✔

(4) Ronaldo Nazário / रोनाल्डो नाज़ारियो

Q.74 Indian Classical Music is broadly divided into two main systems. The system that developed primarily in the Southern states of India is known as _____.

भारतीय शास्त्रीय संगीत को मोटे तौर पर दो मुख्य पद्धतियों में विभाजित किया गया है। वह पद्धति जो मुख्य रूप से भारत के दक्षिणी राज्यों में विकसित हुई, _____ के नाम से जानी जाती है।

(1) Hindustani Sangeet / हिंदुस्तानी संगीत

(2) Dhrupad Sangeet / ध्रुपद संगीत

(3) Carnatic Sangeet / कर्नाटक संगीत ✔

(4) Gharana Sangeet / घराना संगीत

Q.75 Which of the following films received the Best Feature Film award in the 71st National Film Awards 2025?

71वें राष्ट्रीय फिल्म पुरस्कार 2025 में निम्नलिखित में से किस फिल्म को सर्वश्रेष्ठ फीचर फिल्म का पुरस्कार मिला?

(1) Major Dhan Singh Thapa / मेजर धन सिंह थापा

(2) Jawan / जवान

(3) Mrs. Chatterjee v/s Norway. / मिसेज़ चटर्जी वर्सेज़ नॉर्वे।

(4) 12th Fail / 12th फेल ✔

Q.76 According to the World Bank's 2025 report (data for 2022–23), India's income inequality as measured by the Gini coefficient was approximately:

विश्व बैंक की 2025 की रिपोर्ट (2022–23 के आँकड़ों) के अनुसार, गिनी गुणांक द्वारा मापी गई भारत की आय असमानता लगभग कितनी थी?

(1) 30.5

(2) 38.0

(3) 25.5 ✔

(4) 23.0

Q.77 Pranav Ramji is a famous _____ player.

प्रणव रामजी एक प्रसिद्ध _____ वादक हैं।

(1) flute / बाँसुरी

(2) sarod / सरोद

(3) harmonium / हारमोनियम

(4) tabla / तबला ✔

Q.78 Which regions will start their census earlier on 1 October 2026?

किन क्षेत्रों में 1 अक्टूबर 2026 को पहले ही जनगणना शुरू होगी?

(1) Ladakh, Jammu & Kashmir, Himachal Pradesh and Uttarakhand / लद्दाख, जम्मू और कश्मीर, हिमाचल प्रदेश और उत्तराखंड ✔

(2) Odisha, Manipur, Haryana and West Bengal / ओडिशा, मणिपुर, हरियाणा और पश्चिम बंगाल

(3) Kerala, Tamil Nadu, Punjab and Rajasthan / केरल, तमिलनाडु, पंजाब और राजस्थान

(4) Karnataka, Maharashtra and Gujarat / कर्नाटक, महाराष्ट्र और गुजरात

Q.79 In which of the following states did Indian archaeologists unearth 15 rare 10th– 11th century idols in September 2025?

सितंबर 2025 में भारतीय पुरातत्वविदों ने निम्नलिखित में से किस राज्य में 10वीं– 11वीं शताब्दी की 15 दुर्लभ मूर्तियाँ खोज निकालीं?

(1) Telangana / तेलंगाना

(2) Odisha / ओडिशा

(3) Gujarat / गुजरात

(4) **Madhya Pradesh / मध्य प्रदेश ✔**

Q.80 What was the theme of the "D.E.S.I.G.N. for BioE3 Challenge" launched by the Ministry of Science & Technology in December 2025?

दिसंबर 2025 में विज्ञान एवं प्रौद्योगिकी मंत्रालय द्वारा शुरू किए गए "D.E.S.I.G.N. for BioE3 Challenge" का विषय क्या था?

(1) Young Scientists Driving India's Biofuture / युवा वैज्ञानिक भारत के जैव-भविष्य को आगे बढ़ा रहे हैं

(2) Innovation for Sustainable Bioeconomy Growth / सतत जैव-अर्थव्यवस्था विकास के लिए नवाचार

(3) **Empowering Youth to Solve Critical Issues of their TIMES / युवाओं को उनके समय (TIMES) के महत्वपूर्ण मुद्दों को हल करने के लिए सशक्त बनाना ✔**

(4) Startups Driving India's Bio-Industrial Revolution / भारत की जैव-औद्योगिक क्रांति को आगे बढ़ाते स्टार्टअप

Arithmetical and Numerical Ability

Q.81 If P is a single digit number such that 6972P455 is divisible by 11, then the value of P is:

यदि P एक अंक वाली संख्या इस प्रकार है कि 6972P455, 11 से विभाज्य है, तो P का मान है:

(1) 3

(2) 1

(3) **2 ✔**

(4) 4

Q.82 Find the simple interest (in ₹) on ₹3000 as a sum borrowed at 6% per year rate of interest for 2 years.

₹3000 की उधार ली गई राशि पर 6% वार्षिक ब्याज दर से 2 वर्ष का साधारण ब्याज (₹ में) ज्ञात कीजिए।

(1) **360 ✔**

(2) 400

(3) 320

(4) 300

Q.83 The simplified value of $48 \div 4 \times 3 - (6 + 2^2)$ is:

$48 \div 4 \times 3 - (6 + 2^2)$ का सरलीकृत मान है:

(1) 38

(2) 28

(3) 84

(4) **26 ✔**

Q.84 The cost of a sofa set increased from ₹18,200 to ₹19,600. Calculate the percentage increase (rounded off to two decimal places).

एक सोफा सेट की कीमत ₹18,200 से बढ़कर ₹19,600 हो गई। प्रतिशत वृद्धि की गणना कीजिए (दो दशमलव स्थानों तक पूर्णांकित)।

(1) 7.69% ✔

(2) 8.99%

(3) 8.69%

(4) 7.99%

Q.85 In a test, B got 52 marks while A got 80 marks, out of 105 maximum marks. What percentage of A's marks was B's marks?

एक परीक्षा में, अधिकतम 105 अंकों में से B को 52 अंक मिले जबकि A को 80 अंक मिले। B के अंक, A के अंकों का कितना प्रतिशत थे?

(1) 65% ✔

(2) 76.19%

(3) 153.85%

(4) 105%

Q.86 Simplify: $(\sqrt[3]{2744})/(\sqrt[4]{256}) \times 2/42 \times 108$

सरल कीजिए: $(\sqrt[3]{2744})/(\sqrt[4]{256}) \times 2/42 \times 108$

(1) 23

(2) 24

(3) 18 ✔

(4) 26

Q.87 Sankalp invested some money in HDFC at 8% per annum rate of interest. What would be the corresponding simple interest (in ₹) if after 2 years, Sankalp got ₹286 as compound interest, considering annual compounding?

संकल्प ने HDFC में 8% वार्षिक ब्याज दर पर कुछ धनराशि निवेश की। यदि वार्षिक रूप से संयोजित होने पर 2 वर्ष बाद संकल्प को चक्रवृद्धि ब्याज के रूप में ₹286 मिले, तो संगत साधारण ब्याज (₹ में) कितना होगा?

(1) 275 ✔

(2) 285

(3) 290

(4) 270

Q.88 The average expenditure of a teacher for the first four months of a year is ₹12,500 and for the next eight months it is ₹14,000. She saves ₹18,000 during the year.
Find her average monthly income.

एक शिक्षिका का वर्ष के पहले चार महीनों का औसत व्यय ₹12,500 है और अगले आठ महीनों का औसत व्यय ₹14,000 है। वह वर्ष के दौरान ₹18,000 की बचत करती है।
उसकी औसत मासिक आय ज्ञात कीजिए।

(1) ₹15,000 ✔

(2) ₹18,500

(3) ₹16,250

(4) ₹14,800

Q.89 The following pie chart gives the expenditure per month of a family across different categories in terms of degrees.
If the total amount spent in a month is ₹56,160, find the total amount spent by the family on housing loan and utilities together.

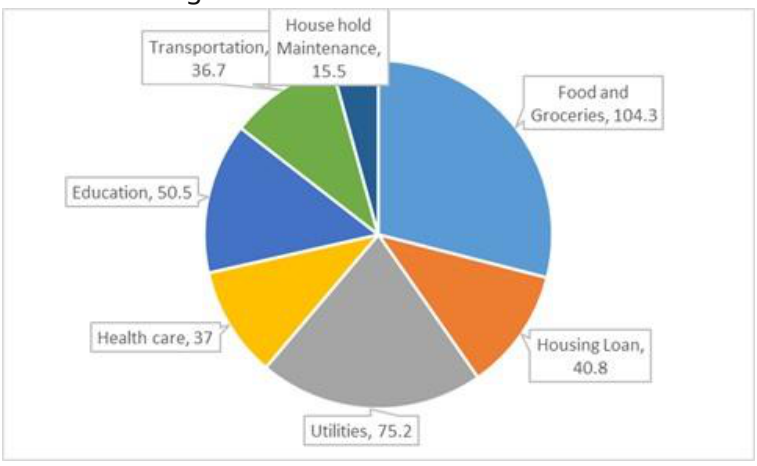

निम्नलिखित पाई चार्ट एक परिवार के विभिन्न मदों पर प्रति माह व्यय को अंशों (डिग्री) में दर्शाता है।
यदि एक महीने में खर्च की गई कुल राशि ₹56,160 है, तो परिवार द्वारा गृह ऋण और उपयोगिताओं (यूटिलिटीज़) पर मिलाकर खर्च की गई कुल राशि ज्ञात कीजिए।

(1) ₹21,622
(2) **₹18,096 ✔**
(3) ₹16,787
(4) ₹15,520

Q.90 The average number of visitors to a museum on Sundays is 2430, and on other days is 870. Find the average number of visitors per day in a 30-day month beginning with a Sunday.
एक संग्रहालय में रविवार को आगंतुकों की औसत संख्या 2430 है, और अन्य दिनों में 870 है। रविवार से शुरू होने वाले 30 दिनों के महीने में प्रति दिन आगंतुकों की औसत संख्या ज्ञात कीजिए।

(1) 1070
(2) 950
(3) 2200
(4) **1130 ✔**

Q.91 A juice shop has two barrels of thick mango milk shake. The first contains 25% mango juice and the rest milk. The second contains 50% mango juice. How much milk shake should the vendor mix from each of the containers so as to get 14 liters of milk shake such that the ratio of mango juice to milk is 3 : 5?
एक जूस की दुकान में गाढ़े मैंगो मिल्क शेक के दो पीपे हैं। पहले में 25% आम का रस है और शेष दूध है। दूसरे में 50% आम का रस है। विक्रेता को प्रत्येक पात्र से कितना मिल्क शेक मिलाना चाहिए ताकि 14 लीटर मिल्क शेक प्राप्त हो जिसमें आम के रस और दूध का अनुपात 3 : 5 हो?

(1) 10 liters, 4 liters / 10 लीटर, 4 लीटर
(2) 6 liters, 8 liters / 6 लीटर, 8 लीटर
(3) 8 liters, 6 liters / 8 लीटर, 6 लीटर
(4) **7 liters, 7 liters / 7 लीटर, 7 लीटर ✔**

QuickSarkari.com | WhatsApp Channel | Telegram: t.me/quick_sarkari

Q.92 A vessel is completely filled with liquid A, out of which 11 litres of liquid A are drawn and is then filled with liquid B. This operation is performed three more times. The ratio of the quantity of liquid A now left in the vessel to that of liquid B is 81 : 175. What was the initial volume (in litres) of liquid A?

एक पात्र द्रव A से पूरा भरा हुआ है, जिसमें से 11 लीटर द्रव A निकाला जाता है और फिर उसे द्रव B से भर दिया जाता है। यह प्रक्रिया तीन बार और की जाती है। अब पात्र में बचे द्रव A की मात्रा और द्रव B की मात्रा का अनुपात 81 : 175 है। द्रव A का प्रारंभिक आयतन (लीटर में) कितना था?

(1) 41
(2) 36
(3) **44** ✔
(4) 34

Q.93 The value of $\sqrt[3]{1728} + 4 \times 5 - 2^3$ is:

$\sqrt[3]{1728} + 4 \times 5 - 2^3$ का मान है:

(1) 20
(2) 34
(3) **24** ✔
(4) 30

Q.94 If 42P456721Q is divisible by 88, find the values of P and Q, respectively.

यदि 42P456721Q, 88 से विभाज्य है, तो क्रमशः P और Q के मान ज्ञात कीजिए।

(1) 3,0
(2) 2,7
(3) **3,6** ✔
(4) 6,1

Q.95 Simplify the following expression and find the value of y.

$5^{4y-1}+25^{2y}=5^{(y-1)/2}+5^{(y+1)/2}$

निम्नलिखित व्यंजक को सरल कीजिए और y का मान ज्ञात कीजिए।

$5^{4y-1}+25^{2y}=5^{(y-1)/2}+5^{(y+1)/2}$

(1) **1/7** ✔
(2) 1/3
(3) 1/5
(4) 1/6

Q.96 Find the largest five-digit number which when divided by 5, 8 and 11 leaves a remainder of 4 in each case.

पाँच अंकों की वह सबसे बड़ी संख्या ज्ञात कीजिए जिसे 5, 8 और 11 से विभाजित करने पर प्रत्येक स्थिति में शेषफल 4 प्राप्त होता है।

(1) **99884** ✔
(2) 99876
(3) 99999
(4) 99994

QuickSarkari.com | WhatsApp Channel | Telegram: t.me/quick_sarkari

Q.97 Anand had ₹1,312 with him. He divided this amount between his sons, Anil and Ashok, and asked them to invest their respective shares at a rate of interest of 5% per annum, compounded annually. It was observed that Anil and Ashok received equal amounts after 18 years and 19 years, respectively. How much (in ₹) did Anand give to Ashok?

आनंद के पास ₹1,312 थे। उसने यह राशि अपने पुत्रों, अनिल और अशोक के बीच बाँट दी, और उन्हें अपने-अपने हिस्से को 5% वार्षिक ब्याज दर पर, वार्षिक रूप से संयोजित, निवेश करने को कहा। यह देखा गया कि अनिल और अशोक को क्रमशः 18 वर्ष और 19 वर्ष बाद समान राशि प्राप्त हुई। आनंद ने अशोक को कितनी राशि (₹ में) दी?

(1) 772

(2) **640** ✔

(3) 672

(4) 490

Q.98 How many integers between 12 and 40 are coprime to 27?

12 और 40 के बीच कितने पूर्णांक 27 के सह-अभाज्य हैं?

(1) **18** ✔

(2) 17

(3) 15

(4) 19

Q.99 The ratio of two numbers is 3:5, and their LCM is 225. What is the difference between these numbers?

दो संख्याओं का अनुपात 3:5 है, और उनका LCM 225 है। इन संख्याओं के बीच का अंतर क्या है?

(1) **30** ✔

(2) 60

(3) 36

(4) 45

Quick Sarkari

Q.100 The following two pie charts show the percentage distribution of the number of employees in a company across five departments in 2020 and 2021.
What is the percentage increase in the number of employees in the operations department from 2020 to 2021?

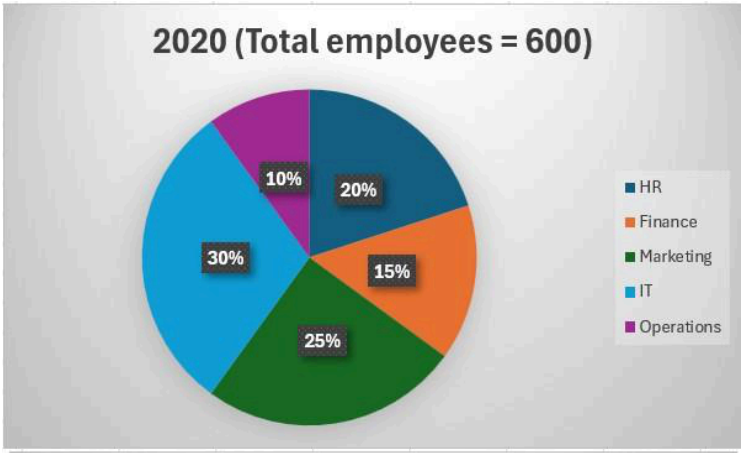

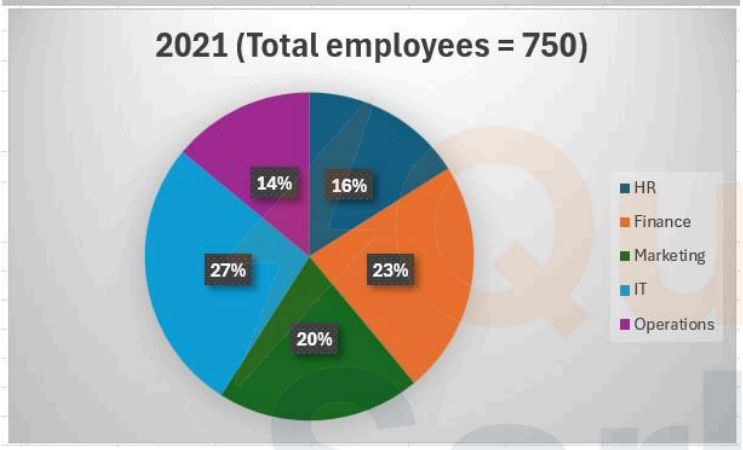

निम्नलिखित दो पाई चार्ट 2020 और 2021 में एक कंपनी के पाँच विभागों में कर्मचारियों की संख्या का प्रतिशत वितरण दर्शाते हैं।
2020 से 2021 तक संचालन (ऑपरेशंस) विभाग में कर्मचारियों की संख्या में कितने प्रतिशत की वृद्धि हुई?

(1) 68%
(2) 55%
(3) **75%** ✔
(4) 72%

Q.101 Find the ratio of the third proportional of 60 and 180 and their mean proportional.
60 और 180 के तृतीयानुपाती तथा उनके मध्यानुपाती का अनुपात ज्ञात कीजिए।

(1) $6\sqrt{3} : 5$
(2) $\mathbf{3\sqrt{3} : 1}$ ✔
(3) $4 : 5\sqrt{2}$
(4) $1 : 2\sqrt{6}$

QuickSarkari.com | WhatsApp Channel | Telegram: t.me/quick_sarkari

Q.102 A boat goes 30 km downstream in the same time it takes to go 18 km upstream. If the speed of the stream is 3 km/h, find the speed of the boat in still water.

एक नाव धारा के अनुकूल 30 km उतने ही समय में जाती है जितने समय में वह धारा के प्रतिकूल 18 km जाती है। यदि धारा की चाल 3 km/h है, तो शांत जल में नाव की चाल ज्ञात कीजिए।

(1) 14 km/h

(2) 8 km/h

(3) 10 km/h

(4) 12 km/h ✔

Q.103 A solid sphere of radius 7 cm is melted and made into small spherical balls of radius 1 cm each. How many small balls will be formed?

7 cm त्रिज्या वाले एक ठोस गोले को पिघलाकर 1 cm त्रिज्या वाली छोटी गोलाकार गेंदें बनाई जाती हैं। कितनी छोटी गेंदें बनेंगी?

(1) 343 ✔

(2) 49

(3) 240

(4) 147

Q.104 Two trains are traveling in opposite directions with speeds of 12 m/s and 9 m/s. If they take 11 seconds to completely cross each other, find the sum of their lengths.

दो रेलगाड़ियाँ 12 m/s और 9 m/s की चाल से विपरीत दिशाओं में चल रही हैं। यदि वे एक-दूसरे को पूरी तरह पार करने में 11 सेकंड लेती हैं, तो उनकी लंबाइयों का योग ज्ञात कीजिए।

(1) 241 meters / 241 मीटर

(2) 220 meters / 220 मीटर

(3) 231 meters / 231 मीटर ✔

(4) 242 meters / 242 मीटर

Q.105 The surface area of a cube with an edge length of 3 cm is:

3 cm किनारे की लंबाई वाले एक घन का पृष्ठीय क्षेत्रफल है:

(1) 64 cm^2

(2) 72 cm^3

(3) 54 cm^2 ✔

(4) 48 cm^2

Q.106 A solid hemisphere of brass of radius 24 cm is cast into a right circular cone of height 192 cm. Find the radius of the base of the cone.

24 cm त्रिज्या वाले पीतल के एक ठोस अर्धगोले को ढालकर 192 cm ऊँचाई वाला एक लंब वृत्तीय शंकु बनाया जाता है। शंकु के आधार की त्रिज्या ज्ञात कीजिए।

(1) 12 cm ✔

(2) 24 cm

(3) 48 cm

(4) 6 cm

Q.107 What is the total surface area of a cone whose height to slant height ratio is 3:5 and its curved surface area is 80π cm^2 ?

उस शंकु का कुल पृष्ठीय क्षेत्रफल क्या है जिसकी ऊँचाई और तिर्यक ऊँचाई का अनुपात 3:5 है और उसका वक्र पृष्ठीय क्षेत्रफल 80π cm^2 है?

(1) 196π cm^2

(2) 168π cm^2

(3) 208π cm^2

(4) **144π cm^2** ✔

Q.108 A shopkeeper bought six identical mobile phones for a total sum of ₹36,000, and sold two of them for a total price of ₹24,000. Find the percentage of gain made by the shopkeeper in the sale of the two phones.

एक दुकानदार ने छह एक जैसे मोबाइल फोन कुल ₹36,000 में खरीदे, और उनमें से दो को कुल ₹24,000 में बेच दिया। दो फोनों की बिक्री में दुकानदार द्वारा अर्जित लाभ प्रतिशत ज्ञात कीजिए।

(1) 103%

(2) 97%

(3) **100%** ✔

(4) 99%

Q.109 A wholesaler supplies a product with a list price of ₹8,000. He offers a 15% trade discount to a retailer. Additionally, the wholesaler has a special festival scheme that offers a further 10% discount on the already discounted price. What is the final payable amount after both discounts?

एक थोक विक्रेता ₹8,000 अंकित मूल्य वाला एक उत्पाद आपूर्ति करता है। वह एक खुदरा विक्रेता को 15% व्यापारिक छूट देता है। इसके अतिरिक्त, थोक विक्रेता की एक विशेष त्योहार योजना है जो पहले से छूट प्राप्त मूल्य पर 10% की अतिरिक्त छूट देती है। दोनों छूटों के बाद देय अंतिम राशि क्या है?

(1) **₹6,120** ✔

(2) ₹6,480

(3) ₹6,240

(4) ₹6,000

Q.110 Initially, a school library had English and Hindi books in the ratio 7:5. The collection included 1680 English books. Later, after acquiring more English books, the ratio of English to Hindi books changed to 9:5. Determine how many new English books were added to the library.

प्रारंभ में, एक विद्यालय के पुस्तकालय में अंग्रेज़ी और हिंदी की पुस्तकें 7:5 के अनुपात में थीं। संग्रह में 1680 अंग्रेज़ी पुस्तकें शामिल थीं। बाद में, और अंग्रेज़ी पुस्तकें प्राप्त करने के बाद, अंग्रेज़ी और हिंदी पुस्तकों का अनुपात बदलकर 9:5 हो गया। ज्ञात कीजिए कि पुस्तकालय में कितनी नई अंग्रेज़ी पुस्तकें जोड़ी गईं।

(1) **480** ✔

(2) 400

(3) 440

(4) 500

QuickSarkari.com | WhatsApp Channel | Telegram: t.me/quick_sarkari

Q.111 The list price of a dining table is ₹50,000. It is sold to a retailer after two successive discounts of 14% and 30%. The retailer wants to earn a profit of 33% on his cost after allowing a 24% discount (on its new list price) to the customer. At what price should he list the dining table?

एक डाइनिंग टेबल का अंकित मूल्य ₹50,000 है। इसे 14% और 30% की दो क्रमिक छूटों के बाद एक खुदरा विक्रेता को बेचा जाता है। खुदरा विक्रेता ग्राहक को (इसके नए अंकित मूल्य पर) 24% की छूट देने के बाद अपनी लागत पर 33% का लाभ अर्जित करना चाहता है। उसे डाइनिंग टेबल का अंकित मूल्य कितना रखना चाहिए?

(1) ₹52,675 ✔

(2) ₹52,480

(3) ₹52,683

(4) ₹52,820

Q.112 The ratio of two numbers is 2 : 11. If the difference between them is 81, what is the smaller number?

दो संख्याओं का अनुपात 2 : 11 है। यदि उनके बीच का अंतर 81 है, तो छोटी संख्या क्या है?

(1) 17

(2) 18 ✔

(3) 16

(4) 15

Q.113 Two triangles ΔABC and ΔDEF have equal areas; if ΔABC has a base of 12 cm and height of 8 cm, and ΔDEF has a base of 16 cm, what is the height of ΔDEF?

दो त्रिभुजों ΔABC और ΔDEF के क्षेत्रफल बराबर हैं; यदि ΔABC का आधार 12 cm और ऊँचाई 8 cm है, और ΔDEF का आधार 16 cm है, तो ΔDEF की ऊँचाई क्या है?

(1) 5 cm

(2) 6 cm ✔

(3) 4.5 cm

(4) 7 cm

Q.114 Two taps can fill a cistern in 2 hours and 64 hours respectively. A third tap can empty it in 2 hours. How long (in hours) will it take to fill one-fourth of the empty cistern, if all of them are opened together?

दो नल एक टंकी को क्रमशः 2 घंटे और 64 घंटे में भर सकते हैं। एक तीसरा नल इसे 2 घंटे में खाली कर सकता है। यदि सभी नल एक साथ खोल दिए जाएँ, तो खाली टंकी का एक-चौथाई भाग भरने में कितना समय (घंटों में) लगेगा?

(1) 16 ✔

(2) 32

(3) 48

(4) 64

Q.115 A book is sold for ₹550, resulting in a profit equal to 10% of its cost price. What was the cost price?

एक पुस्तक ₹550 में बेची जाती है, जिससे उसके क्रय मूल्य के 10% के बराबर लाभ होता है। क्रय मूल्य क्या था?

(1) ₹490

(2) ₹480

(3) ₹500 ✔

(4) ₹510

Q.116 A and B together can complete a job in 15 days. B alone can complete the same job in 20 days. In how many days can A alone complete the job?

A और B मिलकर एक कार्य को 15 दिनों में पूरा कर सकते हैं। B अकेला उसी कार्य को 20 दिनों में पूरा कर सकता है। A अकेला उस कार्य को कितने दिनों में पूरा कर सकता है?

(1) 65 days / 65 दिन

(2) 55 days / 55 दिन

(3) **60 days / 60 दिन ✔**

(4) 50 days / 50 दिन

Q.117 Find the area of canvas required to build a conical tent of height 84 cm and floor area 3850 sq. cm. (Take π = 22/7)

84 cm ऊँचाई और 3850 वर्ग cm फर्श क्षेत्रफल वाला एक शंक्वाकार तंबू बनाने के लिए आवश्यक कैनवास का क्षेत्रफल ज्ञात कीजिए। (π = 22/7 लीजिए)

(1) 11.01 m^2

(2) **1.001 m^2 ✔**

(3) 1001 m^2

(4) 10.11 m^2

Q.118 Divide ₹7,700 into three parts in such a way that half of the first part, one-fourth of the second part and one-eighth of the third part are equal. What is the value (in ₹) of the first part?

₹7,700 को तीन भागों में इस प्रकार विभाजित कीजिए कि पहले भाग का आधा, दूसरे भाग का एक-चौथाई और तीसरे भाग का आठवाँ भाग बराबर हों। पहले भाग का मान (₹ में) क्या है?

(1) 1,200

(2) **1,100 ✔**

(3) 1,400

(4) 1,300

Q.119 A regular pentagon has an area of 300 cm^2, and each of its sides measures 12 cm. Find the length of its apothem.

एक समपंचभुज का क्षेत्रफल 300 cm^2 है, और इसकी प्रत्येक भुजा 12 cm है। इसके अंतःत्रिज्या-लंब (एपोथेम) की लंबाई ज्ञात कीजिए।

(1) 9 cm

(2) 8 cm

(3) **10 cm ✔**

(4) 12 cm

Q.120 A cuboid has a length of 10 cm, a breadth of 5 cm, and a height of 4 cm. What is its volume?

एक घनाभ की लंबाई 10 cm, चौड़ाई 5 cm और ऊँचाई 4 cm है। इसका आयतन क्या है?

(1) 800 cm^3

(2) **200 cm^3 ✔**

(3) 220 cm^3

(4) 1000 cm^3

QuickSarkari.com | WhatsApp Channel | Telegram: t.me/quick_sarkari

English Language and Comprehension

Q.121 In the given question, a statement divided into different segments is given. The first segment (A) is fixed. Rearrange the other segments to form a coherent statement.
Travelling by train (A) / gives me a chance to watch (P) / along the way (Q) / the changing countryside (R) / and meet new people (S)

(1) PRSQ ✔
(2) SQPR
(3) SPQR
(4) PQRS

Q.122 In the given question, a statement divided into different segments is given. The first segment(A) is fixed. Rearrange the other segments to form a coherent statement.
Politics in the country(A) / service and truth (P) / of power and promises (Q) / has become a game (R) / rather than (S)

(1) RQSP ✔
(2) RSPQ
(3) PQRS
(4) SQPR

Q.123 Select the most appropriate option to complete the sentence.
We cannot start the class _____ the teacher arrives.

(1) therefore
(2) but
(3) until ✔
(4) or

Q.124 The following sentences, when arranged in a logical and coherent paragraph, describe a simple process. The first and last sentences of the paragraph are fixed. Choose the option that presents the correct sequence of the middle sentences (A, B, C, D, E) to form a meaningful paragraph.
First sentence: Making a perfect cup of tea is easy but precise.
(A) Pour boiling water over the tea leaves or tea bag.
(B) Remove the tea bag, add milk or sugar if you want, and enjoy.
(C) First, boil fresh cold water.
(D) While water heats, put tea in your cup or pot.
(E) Let the tea steep for 3–5 minutes.
Last sentence: This attention to detail makes tea comforting.

(1) DCBEA
(2) CDAEB ✔
(3) BADCE
(4) ACEDB

Q.125 The parts labeled (OPQRST) form a single sentence when rearranged correctly.
Choose the correct sequence to make a meaningful sentence.
O: a policy widely debated for its economic impact,
P: the government's decision to subsidize renewable energy,
Q: ultimately led to
R: a significant reduction in carbon emissions
S: despite initial skepticism from industrial sectors, T: within just five years.

(1) OPSQRT
(2) STQORP
(3) POSQRT ✔
(4) PSOQTR

Q.126 Choose the option that best replaces the underlined text.
The accused was released from prison because he was formally cleared of all criminal charges.

(1) detained
(2) convicted
(3) acquitted ✔
(4) arrested

Q.127 Select the most appropriate option to complete the sentence.
The students waited _____ the school gate for the bus.

(1) through
(2) under
(3) in
(4) at ✔

Q.128 Select a specific word from the options below to replace the underlined group of words in the following sentence.
Her habit of describing her own life and experiences in a way that is meant to make people feel sorry for her was tiresome to her friends.

(1) Victimhood ✔
(2) Narcissism
(3) Melodrama
(4) Hypochondria

Q.129 Select a specific word from the options below to replace the underlined group of words in the following sentence.
After the earthquake, the city was in a state of complete disorder and confusion.

(1) Pandemonium
(2) Chaos ✔
(3) Havoc
(4) Anarchy

Q.130 Choose the most suitable option to complete the sentence meaningfully.
Every morning, my neighbor ____ his dog for a walk in the park.

(1) takes ✔
(2) take
(3) is taking
(4) taken

Q.131 Choose the most suitable option to complete the sentence meaningfully.
The presentation will start exactly ____ 3:00 PM, so please be seated by then.

(1) by
(2) on
(3) at ✔
(4) in

Q.132 Fill in the blank with the most appropriate option.
The rescue team _____ through the dense forest to search for the missing hikers.

(1) commuted
(2) sauntered
(3) loitered
(4) traversed ✔

Q.133 The question below consists of a set of labeled phrases. Out of the four options given, select the most logical order to form a coherent sentence.
P: the earth and rivers vanish into caves, nature reveals
Q: deep in the forests of Meghalaya, where clouds kiss
R: her most secret artistry—alive, mysterious, and forever
S: beyond the full grasp of human understanding

(1) RPSQ
(2) QPRS ✔
(3) PSQR
(4) SQRP

Q.134 Select the most appropriate option that can substitute the underlined segment in the given sentence.
He was rewarded for his honesty and truthfulness in reporting the lost wallet.

(1) obedience
(2) integrity ✔
(3) diplomacy
(4) deceit

Q.135 Convert the following sentence from Active to Passive Voice.
The volunteers cleaned the park last weekend.

(1) The park will be cleaned by the volunteers last weekend.
(2) The park has been cleaned by the volunteers last weekend.
(3) The park is cleaned by the volunteers last weekend.
(4) The park was cleaned by the volunteers last weekend. ✔

Q.136 Select the most appropriate option that can substitute the underlined segment in the given sentence.
The custom of marrying within one's own social group or caste still exists in some parts of society.

(1) monogamy
(2) **endogamy ✔**
(3) celibacy
(4) polygamy

Q.137 Fill in the blank with the most appropriate option.
The team celebrated their victory _____ they had worked hard to earn it.

(1) yet
(2) while
(3) **as ✔**
(4) whereas

Q.138 Select the most appropriate option that can substitute the underlined segment in the given sentence.
The building where books are kept for reading or borrowing was renovated recently.

(1) museum
(2) laboratory
(3) **library ✔**
(4) gallery

Q.139 Select the most appropriate option that can substitute the underlined segment in the given sentence.
Her wise and careful handling of the situation impressed everyone at the meeting.

(1) equanimous
(2) congenial
(3) altruistic
(4) **judicious ✔**

Q.140 In the given question, a statement divided into different segments is given.
Rearrange all the segments to form a coherent statement.
A new element (P) / That glowed brightly (Q) / The scientist discovered (R) / When mixed with water (S)

(1) **RPQS ✔**
(2) PQSR
(3) PSRQ
(4) RQSP

Q.141 Identify the correctly spelled word to complete the sentence.
The scientist's _____ were recognized internationally.

(1) acheivments
(2) **achievements ✔**
(3) acheivements
(4) achievments

Quick Sarkari

Q.142 Read the given sentence carefully and select the option that converts it into passive voice.
I will help them solve the problem during the meeting.

(1) They will helped by me to solve the problem.
(2) They were helped by me to solve the problem.
(3) They will be helped by me to solve the problem. ✔
(4) They are helped by me to solve the problem.

Q.143 Select the most appropriate passive voice of the sentence given below.
Savita has prepared dinner.

(1) Dinner has been prepared by Savita. ✔
(2) Dinner is being prepared by Savita.
(3) Dinner had been prepared by Savita.
(4) Dinner have been prepared by Savita.

Q.144 Select the option that expresses the given sentence in passive voice.
They are painting the house.

(1) The house has been painted by them.
(2) The house is being painted by them. ✔
(3) The house is painted by them.
(4) The house was being painted by them.

Q.145 Choose the option which completes the given sentence correctly in direct speech. Direct Speech: Rita said, _____.
Indirect Speech: Rita said that she would visit her grandmother the next day.

(1) "I am visiting my grandmother the next day."
(2) "I would visited my grandmother tomorrow."
(3) "I will visit my grandmother tomorrow." ✔
(4) "I visit my grandmother tomorrow."

Q.146 Read the following sentence and identify the wrongly spelt word.
After the heavy storm, the couragous residents started to rebuild their damaged houses with remarkable speed and great determination.

(1) remarkable
(2) determination
(3) damaged
(4) couragous ✔

Q.147 Select the most appropriate option that rectifies the underlined incorrectly spelt word in the given sentence.
His careless remarks during the meeting could jeoperdise the entire project.

(1) jeopardise ✔
(2) jeopardizee
(3) jieopardize
(4) geoperdize

Q.148 Choose the correct spelling of the highlighted word from the options provided.
The lieutanant gave a peculiar order to the battalion.

(1) lieutenent
(2) **lieutenant ✔**
(3) lieuttenant
(4) lieuttenent

Q.149 Choose the correct active voice form of the given sentence.
The novel was being discussed by the literature circle when the guest speaker arrived.

(1) The literature circle were discussing the novel when the guest speaker arrived.
(2) **The literature circle was discussing the novel when the guest speaker arrived. ✔**
(3) The literature circle had discussed the novel when the guest speaker arrived.
(4) The literature circle discussed the novel when the guest speaker arrived.

Q.150 Select the most appropriate option that rectifies the underlined incorrectly spelt word in the given sentence.
His actions were slow and diliberate, showing he had carefully thought through every step.

(1) dileberate
(2) deleberate
(3) dilibirate
(4) **deliberate ✔**

Q.151

Read the following passage and answer the questions given below.
Born in a small coastal town, Meera had always been fascinated by the sea. Her father, a fisherman, often warned her of its unpredictable moods, but she saw only its endless beauty and mystery. When a severe storm destroyed most of the village boats, many families lost their livelihood. Instead of despairing, Meera decided to learn marine engineering to help rebuild stronger, safer vessels. With the help of scholarships and long nights of study, she graduated from a top institute and returned home to design storm-resistant boats. Her innovation not only revived her village's fishing industry but also drew the attention of coastal communities across the country. Through seminars and training programs, she shared her designs widely, promoting eco-friendly methods and sustainable technologies. Meera's journey from a fisherman's daughter to a pioneer in sustainable marine technology inspired many young girls to believe that determination, education, and compassion could turn even the fiercest tides in one's favor.

What best describes the theme of the passage?

(1) The importance of family traditions
(2) The struggle between humans and the sea
(3) **The strength of education and perseverance ✔**
(4) The power of nature's unpredictability

Q.152

Read the following passage and answer the questions given below.
Born in a small coastal town, Meera had always been fascinated by the sea. Her father, a fisherman, often warned her of its unpredictable moods, but she saw only its endless beauty and mystery. When a severe storm destroyed most of the village boats, many families lost their livelihood. Instead of despairing, Meera decided to learn marine engineering to help rebuild stronger, safer vessels. With the help of scholarships and long nights of study, she graduated from a top institute and returned home to design storm-resistant boats. Her innovation not only revived her village's fishing industry but also drew the attention of coastal communities across the country. Through seminars and training programs, she shared her designs widely, promoting eco-friendly methods and sustainable technologies. Meera's journey from a fisherman's daughter to a pioneer in sustainable marine technology inspired many young girls to believe that determination, education, and compassion could turn even the fiercest tides in one's favor.

How does this story connect to the real world?

(1) It warns against modern technology.

(2) It highlights the need for global cooperation.

(3) It reflects real struggles of coastal communities. ✔

(4) It discusses tourism and economic growth.

Q.153

Read the following passage and answer the questions given below.
Born in a small coastal town, Meera had always been fascinated by the sea. Her father, a fisherman, often warned her of its unpredictable moods, but she saw only its endless beauty and mystery. When a severe storm destroyed most of the village boats, many families lost their livelihood. Instead of despairing, Meera decided to learn marine engineering to help rebuild stronger, safer vessels. With the help of scholarships and long nights of study, she graduated from a top institute and returned home to design storm-resistant boats. Her innovation not only revived her village's fishing industry but also drew the attention of coastal communities across the country. Through seminars and training programs, she shared her designs widely, promoting eco-friendly methods and sustainable technologies. Meera's journey from a fisherman's daughter to a pioneer in sustainable marine technology inspired many young girls to believe that determination, education, and compassion could turn even the fiercest tides in one's favor.

What can be inferred about Meera's character?

(1) She relied on others for success.

(2) She was ambitious and resilient. ✔

(3) She was fearful but obedient.

(4) She disliked her hometown.

Q.154

Read the following passage and answer the questions given below.
Born in a small coastal town, Meera had always been fascinated by the sea. Her father, a fisherman, often warned her of its unpredictable moods, but she saw only its endless beauty and mystery. When a severe storm destroyed most of the village boats, many families lost their livelihood. Instead of despairing, Meera decided to learn marine engineering to help rebuild stronger, safer vessels. With the help of scholarships and long nights of study, she graduated from a top institute and returned home to design storm-resistant boats. Her innovation not only revived her village's fishing industry but also drew the attention of coastal communities across the country. Through seminars and training programs, she shared her designs widely, promoting eco-friendly methods and sustainable technologies. Meera's journey from a fisherman's daughter to a pioneer in sustainable marine technology inspired many young girls to believe that determination, education, and compassion could turn even the fiercest tides in one's favor.

Which title suits the passage best?

(1) Rising with the Waves
(2) The Storm that Broke Dreams
(3) Lessons from the Coastline
(4) **Between Nets and Knowledge ✔**

Q.155

Read the following passage and answer the questions given below.
Born in a small coastal town, Meera had always been fascinated by the sea. Her father, a fisherman, often warned her of its unpredictable moods, but she saw only its endless beauty and mystery. When a severe storm destroyed most of the village boats, many families lost their livelihood. Instead of despairing, Meera decided to learn marine engineering to help rebuild stronger, safer vessels. With the help of scholarships and long nights of study, she graduated from a top institute and returned home to design storm-resistant boats. Her innovation not only revived her village's fishing industry but also drew the attention of coastal communities across the country. Through seminars and training programs, she shared her designs widely, promoting eco-friendly methods and sustainable technologies. Meera's journey from a fisherman's daughter to a pioneer in sustainable marine technology inspired many young girls to believe that determination, education, and compassion could turn even the fiercest tides in one's favor.

Which structural feature stands out in the passage?

(1) Description of multiple locations
(2) Use of dialogue between characters
(3) Comparison between two professions
(4) **Chronological narration of life events ✔**

Q.156

Read the given passage and answer the questions that follow.
In the deep jungle, Mowgli grew up among the animals and learned their ways. He listened to the river as if it spoke, and understood the silence of the stones. The wolves taught him how to live and hunt together as a pack, to read the wind for danger, and to follow the laws that kept the jungle in balance. Each creature had its own nature — the panther moved quietly like a shadow, the bear was slow and strong, and the jackal was clever but untrustworthy. Living between the human and animal worlds, Mowgli learned many lessons. He realized that courage without wisdom could be dangerous, and that cleverness without friendship was lonely. Sometimes, as he sat by the fire left by humans, he wondered if people were as wise as the animals. In the jungle, he learned that true knowledge comes slowly, through patience and careful listening.

Which title best reflects the message of the passage?

(1) The Strength of the Pack
(2) The Fire of Humanity
(3) **Lessons from the Wild ✔**
(4) The Shadow Panther

Q.157

Read the given passage and answer the questions that follow.
In the deep jungle, Mowgli grew up among the animals and learned their ways. He listened to the river as if it spoke, and understood the silence of the stones. The wolves taught him how to live and hunt together as a pack, to read the wind for danger, and to follow the laws that kept the jungle in balance. Each creature had its own nature — the panther moved quietly like a shadow, the bear was slow and strong, and the jackal was clever but untrustworthy. Living between the human and animal worlds, Mowgli learned many lessons. He realized that courage without wisdom could be dangerous, and that cleverness without friendship was lonely. Sometimes, as he sat by the fire left by humans, he wondered if people were as wise as the animals. In the jungle, he learned that true knowledge comes slowly, through patience and careful listening.

What does the description of animals suggest about Mowgli's understanding of the jungle?

(1) He thought animals were foolish.
(2) **He saw each creature as a teacher with its own wisdom. ✔**
(3) He wanted to rule over the animals.
(4) He feared the animals deeply.

Q.158

Read the given passage and answer the questions that follow.
In the deep jungle, Mowgli grew up among the animals and learned their ways. He listened to the river as if it spoke, and understood the silence of the stones. The wolves taught him how to live and hunt together as a pack, to read the wind for danger, and to follow the laws that kept the jungle in balance. Each creature had its own nature — the panther moved quietly like a shadow, the bear was slow and strong, and the jackal was clever but untrustworthy. Living between the human and animal worlds, Mowgli learned many lessons. He realized that courage without wisdom could be dangerous, and that cleverness without friendship was lonely. Sometimes, as he sat by the fire left by humans, he wondered if people were as wise as the animals. In the jungle, he learned that true knowledge comes slowly, through patience and careful listening.

What can we infer about Mowgli's feelings toward humans?

(1) He disliked them entirely.

(2) He wanted to become fully human.

(3) **He was curious but uncertain about them.** ✔

(4) He believed they were superior.

Q.159

Read the given passage and answer the questions that follow.
In the deep jungle, Mowgli grew up among the animals and learned their ways. He listened to the river as if it spoke, and understood the silence of the stones. The wolves taught him how to live and hunt together as a pack, to read the wind for danger, and to follow the laws that kept the jungle in balance. Each creature had its own nature — the panther moved quietly like a shadow, the bear was slow and strong, and the jackal was clever but untrustworthy. Living between the human and animal worlds, Mowgli learned many lessons. He realized that courage without wisdom could be dangerous, and that cleverness without friendship was lonely. Sometimes, as he sat by the fire left by humans, he wondered if people were as wise as the animals. In the jungle, he learned that true knowledge comes slowly, through patience and careful listening.

Choose the word closest in meaning to "untrustworthy" as used in the passage.

(1) Loyal

(2) Rude

(3) **Unreliable** ✔

(4) Clever

Q.160

Read the given passage and answer the questions that follow.
In the deep jungle, Mowgli grew up among the animals and learned their ways. He listened to the river as if it spoke, and understood the silence of the stones. The wolves taught him how to live and hunt together as a pack, to read the wind for danger, and to follow the laws that kept the jungle in balance. Each creature had its own nature — the panther moved quietly like a shadow, the bear was slow and strong, and the jackal was clever but untrustworthy. Living between the human and animal worlds, Mowgli learned many lessons. He realized that courage without wisdom could be dangerous, and that cleverness without friendship was lonely. Sometimes, as he sat by the fire left by humans, he wondered if people were as wise as the animals. In the jungle, he learned that true knowledge comes slowly, through patience and careful listening.

Which statement best summarizes the passage?

(1) Mowgli misses human society and wishes to return to it.
(2) **The jungle teaches Mowgli wisdom and patience through observation. ✔**
(3) Mowgli learns to survive by defeating dangerous animals.
(4) The animals refuse to accept Mowgli as one of their own.

Hindi Language and Comprehension

Q.161 सर्वोचित क्रिया शब्द से दिए गये वाक्य का रिक्त स्थान पूर्ण करें— वह तेज़ हवा में पतंग _____ के लिए छत पर गया था।

(1) लहराने
(2) फहराने
(3) **उड़ाने ✔**
(4) लड़ाने

Q.162 निम्नलिखित में से एक लोकोक्ति-युग्म सुमेलित नहीं है-

(1) अभी दिल्ली दूर है-अभी तो बहुत प्रयास करना है।
(2) आधा तीतर,आधा बटेर-बेजोड़ चीज;बेतुकी बात।
(3) **आप भला तो जग भला –अत्यधिक खुश होना। ✔**
(4) अरहर की टट्टी,गुजराती ताला-एक बेमेल काम।

Q.163 निम्नलिखित वाक्य के रिक्त स्थान में उचित क्रिया की पूर्ति कीजिए - ' आशीष _____रहा है।'

(1) जाते
(2) पढ़ी
(3) **लिख ✔**
(4) आते

Q.164 सर्वोचित क्रिया शब्द से दिए गये वाक्य का रिक्त स्थान पूर्ण करें— बच्चे खुशी से मैदान में गेंद के साथ _____।

(1) बतिया रहे थे
(2) दौड़ लगा रहे थे
(3) **खेल रहे थे ✔**
(4) पढ़ रहे थे

Q.165 निम्नलिखित वाक्यांश एक वाक्य का अभिन्न अंग हैं ,जो यहाँ क्रम में नहीं दिए गए हैं। इनको क्रम में लगाइए 1.इस संकट से बचने का सबसे अच्छा उपाय है 2.पास के दूसरे सरोवर में चले जाएँ 3.कि सवेरा होने से पहले हम सब यह सरोवर छोड़कर 4.अनागतविधाता ने कहा कि

(1) 4,3,2,1

(2) 1,2,3,4

(3) 1,3,4,2

(4) **4,1,3,2 ✔**

Q.166 'पैर से लेकर सिर तक' वाक्यांश के लिए उचित शब्द क्या होगा?

(1) आमाशय

(2) आश्वस्त

(3) उत्क्षिप्त

(4) **आपादमस्तक ✔**

Q.167 निम्नलिखित में से कौन सी एक लोकोक्ति और उसका अर्थ युग्म अशुद्ध है?

(1) भागे भूत की लँगोटी ही सही- कुछ ना पाने से निराश को कुछ ही मिल जाना

(2) अंत भला तो सब भला-कर्म का फल अच्छा हो तो सब ठीक है

(3) थोथा चना बाजे घना- कम गुण वाले अधिक बढ़-चढ़कर बोलते हैं

(4) **बिल्ली के भागों छीका टूटा- सबका मनमाने ढंग से चलना ✔**

Q.168 'उत्तम मध्यम कहना' मुहावरे का सही अर्थ होगा -

(1) **भला बुरा कहना ✔**

(2) गूढ़ रहस्य जान जाना

(3) पेट पालना

(4) उलट -पुलट देना

Q.169 'अग्नि से संबंधित' वाक्यांश के लिए एक सार्थक शब्द क्या होगा?

(1) आग्रहायण

(2) आगार

(3) **आग्नेय ✔**

(4) आगमिक

Q.170 निम्नलिखित वाक्यांश के लिए सार्थक शब्द लिखें।
जिसका आदर न किया गया हो___

(1) अवज्ञा

(2) पूज्य

(3) **अनादृत ✔**

(4) आदरणीय

Q.171 'जो दिखाई न देता हो' वाक्यांश के लिए सार्थक शब्द का विकल्पों में से चयन कीजिए।

(1) अनंत

(2) दूरदर्शी

(3) **अदृश्य ✔**

(4) अनुपम

Q.172 जब मैं पुस्तकालय पहुँचा, तब छात्र वहाँ ___ थे। रिक्त स्थान की पूर्ति उचित क्रिया से करें।

(1) पढ़े
(2) **पढ़ रहे ✔**
(3) पढ़ते होंगे
(4) पढ़

Q.173 'आटे के साथ घुन भी पिसता है' लोकोक्ति का सही अर्थ होगा -

(1) रूठने से अपना ही नुक्सान होता है
(2) **दोषी व्यक्ति के साथ निर्दोष भी मारा जाता है ✔**
(3) छोटा बड़े को उपदेश देता है
(4) दोहरा लाभ

Q.174 निम्नलिखित मुहावरे का सही अर्थ चुनिए— 'खून पानी हो जाना'

(1) **बहुत अधिक कष्ट होना ✔**
(2) मेहनत का फल मिलना
(3) किसी से ईर्ष्या करना
(4) बहुत अधिक प्रसन्न होना

Q.175 निम्न में से कौन-सी लोकोक्ति अपने अर्थ से सुमेलित है?

(1) जिसकी लाठी उसकी भैंस -- भैंस लाठी से मानती है
(2) **जिस पत्तल में खाना उसी में छेद करना -- कृतघ्न होना ✔**
(3) छठी का दूध याद करना -- बुरा हाल होना
(4) जान है तो जहान है -- ज़िंदा रहने पर सबकुछ अच्छा लगता है

Q.176 नीचे दिए वाक्य में रिक्त-स्थान की पूर्ति के लिए दिए गए विकल्पों में से सार्वनामिक विशेषण चुनें- मैंने _____लड़कों से पूछा।

(1) बड़े
(2) तीन
(3) **उन ✔**
(4) कुछ

Q.177 भारतीय स्वतंत्रता संग्राम ___ कई महापुरुषों ने अपने प्राणों की आहुति दी। रिक्त स्थान की पूर्ति उचित कारक से करें।

(1) से
(2) द्वारा
(3) को
(4) **में ✔**

Q.178 निम्नलिखित शब्दों को सही क्रम में लगाकर वाक्य बनाइयेकर्तव्य / समाज / का / पालन /मूल / आधार / है

(1) **समाज का मूल आधार कर्तव्य पालन है । ✔**
(2) समाज मूल आधार कर्तव्य का पालन है ।
(3) मूल आधार कर्तव्य समाज का पालन है ।
(4) समाज का आधार मूल कर्तव्य पालन है ।

Q.179 दिए गए वाक्य में उचित परिमाणवाचक विशेषण का चयन करके रिक्त स्थान की पूर्ति करें- परीक्षा के लिए --------तैयारी आवश्यक है।

(1) **पर्याप्त ✔**
(2) कौन -सी
(3) यह
(4) अच्छी

Q.180 नीचे दिए वाक्यांश के लिए एक सार्थक शब्द दिए गए विकल्पों में से चुनिए- किसी काम में दूसरे से आगे बढ़ जाने की इच्छा

(1) स्पर्द्धा ✔
(2) महदेच्छा
(3) आकांक्षा
(4) महत्वाकांक्षा

Q.181 दिए गए वाक्य के रेखांकित शब्द का विलोम पहचानें- पेड़ पर कई सूखी पत्तियाँ लटक रही थीं।

(1) हरी ✔
(2) लंबी
(3) सफेद
(4) मोटी

Q.182 दिए गए वाक्य के रेखांकित शब्द का विलोम पहचानें- सुबह का शांत वातावरण मन को सुकून देता है।

(1) हल्का
(2) कोलाहलपूर्ण ✔
(3) नीला
(4) मुलायम

Q.183 वाक्य में त्रुटि की पहचान करें।
श्याम गनित में हमेशा अच्छे अंक प्राप्त करता है।

(1) अंक
(2) हमेशा
(3) गनित ✔
(4) प्राप्त

Q.184 दिए गए वाक्य के रेखांकित शब्द का विलोम पहचानें- घर को भीतर से हमेशा साफ रखना चाहिए।

(1) चौकोर
(2) मीठा
(3) ऊँचा
(4) बाहर ✔

Q.185 दिए गए वाक्य के रेखांकित शब्द का पर्यायवाची पहचानें- सही मार्ग चुनने से जीवन में सफलता के अवसर बढ़ते हैं।

(1) बाज़ार
(2) गुलाब
(3) दीवार
(4) रास्ता ✔

Q.186 निम्नलिखित विकल्पों में से शुद्ध वाक्य का विकल्प चुनें -

(1) मैं आपके दर्शन करने आया हूँ। ✔
(2) मैं आपपर भक्ती रखता हूँ।
(3) उसने माता के लिए कवीता लिखी थी।
(4) वकीलों ने कागजों की जांच किया था।

QuickSarkari.com | WhatsApp Channel | Telegram: t.me/quick_sarkari

Q.187 दिए गए वाक्य के किस भाग में त्रुटि है?
सूर्य के तीन परियाय लिखो।

(1) सूर्य
(2) **परियाय ✔**
(3) लिखो ।
(4) के तीन

Q.188 दिए गए वाक्य के किस भाग में त्रुटि है?
वहां की जलवायु मेरे अनुकुल नहीं है।

(1) वहां की
(2) **अनुकुल ✔**
(3) नहीं है।
(4) जलवायु मेरे

Q.189 निम्नलिखित वाक्य में रेखांकित शब्द का विलोम क्या होगा?
प्रदेश के मुख्यमंत्री सदाचारी हैं।

(1) विनीत
(2) विश्वासी
(3) विहित
(4) **व्यभिचारी ✔**

Q.190 निम्नलिखित वाक्य में रेखांकित शब्द का पर्यायवाची क्या होगा?
शंकराचार्य भारतीय मेधा का सर्वोत्तम उदाहरण हैं।

(1) **प्रज्ञा ✔**
(2) शील
(3) स्फूर्ति
(4) रियाया

Q.191

निम्नलिखित गद्यांश के आधार पर प्रश्नों के उत्तर दीजिए।
भारत नेट भारत का विस्तृत ऑप्टिक फाइबर हाईवे है, जो डिजिटल दूरी को कम करके कनेक्टिविटी की चुनौतियों को पार करता है। यह 1.39 लाख करोड़ रुपए के बजट के साथ दुनिया की सबसे बड़ी ग्रामीण ब्रॉडबैंड पहल की स्थापना करता है।
2025 तक 6.4 लाख गाँवों को हाई स्पीड ब्रॉडबैंड नेटवर्क से जोड़ने का महत्त्वाकांक्षी लक्ष्य है। 2018 से, दिसंबर 2023 तक देश में 6.64 लाख किलोमीटर ऑप्टिकल फाइबर बिछाया गया है। दिसंबर 2023 तक कुल 2.64 लाख नियोजित सेवाओं में से 2.08 लाख ग्राम पंचायतें पहले से ही सेवाओं के साथ सशक्त है। भारतनेट ने दिसंबर 2023 तक पहले ही 12 लाख नौकरियों का सृजन कर लिया है और इसके आर्थिक प्रभाव को दर्शाते हुए 2025 तक 1 लाख करोड़ रुपए का सृजन करने का अनुमान है। भारत की पहली 2,312 किलोमीटर लंबी ऑप्टिकल फाइबर परियोजना 2018 में चेन्नई-अंडमान और निकोबार द्वीप समूह को जोड़ने के लिए पूरी की गई थी।

2025 तक कितने गाँवों को हाईस्पीड ब्रॉडबैंड नेटवर्क से जोड़ने का लक्ष्य है?

(1) **6.4 लाख ✔**
(2) 6.64 लाख
(3) 2.64 लाख
(4) 2.06 लाख

QuickSarkari.com | WhatsApp Channel | Telegram: t.me/quick_sarkari

Q.192

निम्नलिखित गद्यांश के आधार पर प्रश्नों के उत्तर दीजिए।
भारत नेट भारत का विस्तृत ऑप्टिक फाइबर हाईवे है, जो डिजिटल दूरी को कम करके कनेक्टिविटी की चुनौतियों को पार करता है। यह 1.39 लाख करोड़ रुपए के बजट के साथ दुनिया की सबसे बड़ी ग्रामीण ब्रॉडबैंड पहल की स्थापना करता है।
2025 तक 6.4 लाख गाँवों को हाई स्पीड ब्रॉडबैंड नेटवर्क से जोड़ने का महत्त्वाकांक्षी लक्ष्य है। 2018 से, दिसंबर 2023 तक देश में 6.64 लाख किलोमीटर ऑप्टिकल फाइबर बिछाया गया है। दिसंबर 2023 तक कुल 2.64 लाख नियोजित सेवाओं में से 2.08 लाख ग्राम पंचायतें पहले से ही सेवाओं के साथ सशक्त है। भारतनेट ने दिसंबर 2023 तक पहले ही 12 लाख नौकरियों का सृजन कर लिया है और इसके आर्थिक प्रभाव को दर्शाते हुए 2025 तक 1 लाख करोड़ रुपए का सृजन करने का अनुमान है। भारत की पहली 2,312 किलोमीटर लंबी ऑप्टिकल फाइबर परियोजना 2018 में चेन्नई-अंडमान और निकोबार द्वीप समूह को जोड़ने के लिए पूरी की गई थी।

भारत की पहली ऑप्टिकल फाइबर परियोजना 2018 में किसको आपस में जोड़ती है?

(1) दिल्ली और लक्ष्यद्वीप
(2) कश्मीर से कन्याकुमारी
(3) दादर नगर से मुंबई
(4) **चेन्नई-अंडमान ✔**

Q.193

निम्नलिखित गद्यांश के आधार पर प्रश्नों के उत्तर दीजिए।
भारत नेट भारत का विस्तृत ऑप्टिक फाइबर हाईवे है, जो डिजिटल दूरी को कम करके कनेक्टिविटी की चुनौतियों को पार करता है। यह 1.39 लाख करोड़ रुपए के बजट के साथ दुनिया की सबसे बड़ी ग्रामीण ब्रॉडबैंड पहल की स्थापना करता है।
2025 तक 6.4 लाख गाँवों को हाई स्पीड ब्रॉडबैंड नेटवर्क से जोड़ने का महत्त्वाकांक्षी लक्ष्य है। 2018 से, दिसंबर 2023 तक देश में 6.64 लाख किलोमीटर ऑप्टिकल फाइबर बिछाया गया है। दिसंबर 2023 तक कुल 2.64 लाख नियोजित सेवाओं में से 2.08 लाख ग्राम पंचायतें पहले से ही सेवाओं के साथ सशक्त है। भारतनेट ने दिसंबर 2023 तक पहले ही 12 लाख नौकरियों का सृजन कर लिया है और इसके आर्थिक प्रभाव को दर्शाते हुए 2025 तक 1 लाख करोड़ रुपए का सृजन करने का अनुमान है। भारत की पहली 2,312 किलोमीटर लंबी ऑप्टिकल फाइबर परियोजना 2018 में चेन्नई-अंडमान और निकोबार द्वीप समूह को जोड़ने के लिए पूरी की गई थी।

भारतनेट ने दिसंबर 2023 तक कितनी नौकरियों का सृजन कर लिया है?

(1) 27 लाख
(2) **12 लाख ✔**
(3) 15 लाख
(4) 20 लाख

Q.194

निम्नलिखित गद्यांश के आधार पर प्रश्नों के उत्तर दीजिए।
भारत नेट भारत का विस्तृत ऑप्टिक फाइबर हाईवे है, जो डिजिटल दूरी को कम करके कनेक्टिविटी की चुनौतियों को पार करता है। यह 1.39 लाख करोड़ रुपए के बजट के साथ दुनिया की सबसे बड़ी ग्रामीण ब्रॉडबैंड पहल की स्थापना करता है।
2025 तक 6.4 लाख गाँवों को हाई स्पीड ब्रॉडबैंड नेटवर्क से जोड़ने का महत्त्वाकांक्षी लक्ष्य है। 2018 से, दिसंबर 2023 तक देश में 6.64 लाख किलोमीटर ऑप्टिकल फाइबर बिछाया गया है। दिसंबर 2023 तक कुल 2.64 लाख नियोजित सेवाओं में से 2.08 लाख ग्राम पंचायतें पहले से ही सेवाओं के साथ सशक्त है। भारतनेट ने दिसंबर 2023 तक पहले ही 12 लाख नौकरियों का सृजन कर लिया है और इसके आर्थिक प्रभाव को दर्शाते हुए 2025 तक 1 लाख करोड़ रुपए का सृजन करने का अनुमान है। भारत की पहली 2,312 किलोमीटर लंबी ऑप्टिकल फाइबर परियोजना 2018 में चेन्नई-अंडमान और निकोबार द्वीप समूह को जोड़ने के लिए पूरी की गई थी।

उपर्युक्त गद्यांश के आधार पर शीर्षक बताएं-

(1) भारत में नया संजाल
(2) भारत की योजना
(3) **भारत नेट का विस्तृत संसार ✔**
(4) भारत की अर्थव्यवस्था

Q.195

निम्नलिखित गद्यांश के आधार पर प्रश्नों के उत्तर दीजिए।
भारत नेट भारत का विस्तृत ऑप्टिक फाइबर हाईवे है, जो डिजिटल दूरी को कम करके कनेक्टिविटी की चुनौतियों को पार करता है। यह 1.39 लाख करोड़ रुपए के बजट के साथ दुनिया की सबसे बड़ी ग्रामीण ब्रॉडबैंड पहल की स्थापना करता है।
2025 तक 6.4 लाख गाँवों को हाई स्पीड ब्रॉडबैंड नेटवर्क से जोड़ने का महत्त्वाकांक्षी लक्ष्य है। 2018 से, दिसंबर 2023 तक देश में 6.64 लाख किलोमीटर ऑप्टिकल फाइबर बिछाया गया है। दिसंबर 2023 तक कुल 2.64 लाख नियोजित सेवाओं में से 2.08 लाख ग्राम पंचायतें पहले से ही सेवाओं के साथ सशक्त है। भारतनेट ने दिसंबर 2023 तक पहले ही 12 लाख नौकरियों का सृजन कर लिया है और इसके आर्थिक प्रभाव को दर्शाते हुए 2025 तक 1 लाख करोड़ रुपए का सृजन करने का अनुमान है। भारत की पहली 2,312 किलोमीटर लंबी ऑप्टिकल फाइबर परियोजना 2018 में चेन्नई-अंडमान और निकोबार द्वीप समूह को जोड़ने के लिए पूरी की गई थी।

भारत नेट क्या है?

(1) इंफ्रास्ट्रक्चर एवं हाइवे
(2) कनेक्टिविटी एवं हाइवे
(3) **ऑप्टिक फाइबर हाईवे ✔**
(4) रोपवे एवं हाइवे

Q.196

निम्नलिखित गद्यांश को ध्यानपूर्वक पढ़ें और पूछे गए प्रश्नों के उत्तर दें।
आज का विद्यार्थी कल का नागरिक है। उस पर राष्ट्र की भावी उन्नति निर्भर है। वह यदि आदर्श हुआ तो भविष्य में राष्ट्र को उन्नति के शिखर पर पहुँचा सकता है, देश में सुधार की सुरसरी प्रवाहित कर सकता है, समाज की कुरीतियों एवं अंधविश्वासों का अंत कर सकता है, अपने यहाँ ज्ञान-विज्ञान का प्रकाश फैला सकता है, जाति का नैतिक स्तर ऊँचा उठा सकता है। हमारे विद्यालय में शशिभूषण ऐसा ही विद्यार्थी है। वह बहुत परिश्रमी तथा अध्ययनशील है। दिन-रात पुस्तकों से चिपटा रहता है।
पाठ्य-पुस्तकों के अतिरिक्त अन्य पुस्तकों का अध्ययन भी उसे प्रिय है। ज्ञान-वृद्धि के लिए वह सदैव प्रयत्नशील रहता है। ज्ञान की एक किरण मिलने की भी जहाँ उसे आशा होती है वहाँ जाने में वह आलस्य नहीं करता। विद्वानों के व्याख्यान एवं वाद- विवाद से वह अपने ज्ञान-भंडार को भरता रहता है। शशिभूषण जिज्ञासु है। विभिन्न विषयों के अध्यापकों से प्रश्न पूछ-पूछ कर अपनी शंकाओं का समाधान एवं कठिनाइयों का निराकरण करता रहता है। ऐसा करने में उसे तनिक भी संकोच नहीं है।

"निराकरण" शब्द का अर्थ है—

(1) शुरुआत करना
(2) **समाधान करना ✔**
(3) आलोचना करना
(4) रोकना

Q.197

निम्नलिखित गद्यांश को ध्यानपूर्वक पढ़ें और पूछे गए प्रश्नों के उत्तर दें।
आज का विद्यार्थी कल का नागरिक है। उस पर राष्ट्र की भावी उन्नति निर्भर है। वह यदि आदर्श हुआ तो भविष्य में राष्ट्र को उन्नति के शिखर पर पहुँचा सकता है, देश में सुधार की सुरसरी प्रवाहित कर सकता है, समाज की कुरीतियों एवं अंधविश्वासों का अंत कर सकता है, अपने यहाँ ज्ञान-विज्ञान का प्रकाश फैला सकता है, जाति का नैतिक स्तर ऊँचा उठा सकता है। हमारे विद्यालय में शशिभूषण ऐसा ही विद्यार्थी है। वह बहुत परिश्रमी तथा अध्ययनशील है। दिन-रात पुस्तकों से चिपटा रहता है।
पाठ्य-पुस्तकों के अतिरिक्त अन्य पुस्तकों का अध्ययन भी उसे प्रिय है। ज्ञान-वृद्धि के लिए वह सदैव प्रयत्नशील रहता है। ज्ञान की एक किरण मिलने की भी जहाँ उसे आशा होती है वहाँ जाने में वह आलस्य नहीं करता। विद्वानों के व्याख्यान एवं वाद- विवाद से वह अपने ज्ञान-भंडार को भरता रहता है। शशिभूषण जिज्ञासु है। विभिन्न विषयों के अध्यापकों से प्रश्न पूछ-पूछ कर अपनी शंकाओं का समाधान एवं कठिनाइयों का निराकरण करता रहता है। ऐसा करने में उसे तनिक भी संकोच नहीं है।

गद्यांश के अनुसार निम्न में से कौन सा कथन सही है?

(1) शशिभूषण केवल पाठ्य-पुस्तकें पढ़ता है।
(2) वह विद्यालय की गतिविधियों में भाग नहीं लेता।
(3) शशिभूषण को प्रश्न पूछने में संकोच होता है।
(4) **शशिभूषण ज्ञान प्राप्ति के लिए सदैव तत्पर रहता है। ✔**

Q.198

निम्नलिखित गद्यांश को ध्यानपूर्वक पढ़ें और पूछे गए प्रश्नों के उत्तर दें।
आज का विद्यार्थी कल का नागरिक है। उस पर राष्ट्र की भावी उन्नति निर्भर है। वह यदि आदर्श हुआ तो भविष्य में राष्ट्र को उन्नति के शिखर पर पहुँचा सकता है, देश में सुधार की सुरसरी प्रवाहित कर सकता है, समाज की कुरीतियों एवं अंधविश्वासों का अंत कर सकता है, अपने यहाँ ज्ञान-विज्ञान का प्रकाश फैला सकता है, जाति का नैतिक स्तर ऊँचा उठा सकता है। हमारे विद्यालय में शशिभूषण ऐसा ही विद्यार्थी है। वह बहुत परिश्रमी तथा अध्ययनशील है। दिन-रात पुस्तकों से चिपटा रहता है।
पाठ्य-पुस्तकों के अतिरिक्त अन्य पुस्तकों का अध्ययन भी उसे प्रिय है। ज्ञान-वृद्धि के लिए वह सदैव प्रयत्नशील रहता है। ज्ञान की एक किरण मिलने की भी जहाँ उसे आशा होती है वहाँ जाने में वह आलस्य नहीं करता। विद्वानों के व्याख्यान एवं वाद- विवाद से वह अपने ज्ञान-भंडार को भरता रहता है। शशिभूषण जिज्ञासु है। विभिन्न विषयों के अध्यापकों से प्रश्न पूछ-पूछ कर अपनी शंकाओं का समाधान एवं कठिनाइयों का निराकरण करता रहता है। ऐसा करने में उसे तनिक भी संकोच नहीं है।

गद्यांश का मुख्य विषय क्या है?

(1) विद्यार्थियों का सामाजिक जीवन
(2) विद्यालय की दिनचर्या
(3) राष्ट्र में तकनीकी प्रगति
(4) **शशिभूषण के गुण और अध्ययनशीलता ✔**

Q.199

निम्नलिखित गद्यांश को ध्यानपूर्वक पढ़ें और पूछे गए प्रश्नों के उत्तर दें।
आज का विद्यार्थी कल का नागरिक है। उस पर राष्ट्र की भावी उन्नति निर्भर है। वह यदि आदर्श हुआ तो भविष्य में राष्ट्र को उन्नति के शिखर पर पहुँचा सकता है, देश में सुधार की सुरसरी प्रवाहित कर सकता है, समाज की कुरीतियों एवं अंधविश्वासों का अंत कर सकता है, अपने यहाँ ज्ञान-विज्ञान का प्रकाश फैला सकता है, जाति का नैतिक स्तर ऊँचा उठा सकता है। हमारे विद्यालय में शशिभूषण ऐसा ही विद्यार्थी है। वह बहुत परिश्रमी तथा अध्ययनशील है। दिन-रात पुस्तकों से चिपटा रहता है।
पाठ्य-पुस्तकों के अतिरिक्त अन्य पुस्तकों का अध्ययन भी उसे प्रिय है। ज्ञान-वृद्धि के लिए वह सदैव प्रयत्नशील रहता है। ज्ञान की एक किरण मिलने की भी जहाँ उसे आशा होती है वहाँ जाने में वह आलस्य नहीं करता। विद्वानों के व्याख्यान एवं वाद- विवाद से वह अपने ज्ञान-भंडार को भरता रहता है। शशिभूषण जिज्ञासु है। विभिन्न विषयों के अध्यापकों से प्रश्न पूछ-पूछ कर अपनी शंकाओं का समाधान एवं कठिनाइयों का निराकरण करता रहता है। ऐसा करने में उसे तनिक भी संकोच नहीं है।

इस गद्यांश का उपयुक्त शीर्षक क्या होगा?

(1) विद्यार्थी और विद्यालय
(2) भविष्य की समस्याएँ
(3) राष्ट्र की उन्नति के मार्ग
(4) **आदर्श छात्र शशिभूषण ✔**

Q.200

निम्नलिखित गद्यांश को ध्यानपूर्वक पढ़ें और पूछे गए प्रश्नों के उत्तर दें।
आज का विद्यार्थी कल का नागरिक है। उस पर राष्ट्र की भावी उन्नति निर्भर है। वह यदि आदर्श हुआ तो भविष्य में राष्ट्र को उन्नति के शिखर पर पहुँचा सकता है, देश में सुधार की सुरसरी प्रवाहित कर सकता है, समाज की कुरीतियों एवं अंधविश्वासों का अंत कर सकता है, अपने यहाँ ज्ञान-विज्ञान का प्रकाश फैला सकता है, जाति का नैतिक स्तर ऊँचा उठा सकता है। हमारे विद्यालय में शशिभूषण ऐसा ही विद्यार्थी है। वह बहुत परिश्रमी तथा अध्ययनशील है। दिन-रात पुस्तकों से चिपटा रहता है।
पाठ्य-पुस्तकों के अतिरिक्त अन्य पुस्तकों का अध्ययन भी उसे प्रिय है। ज्ञान-वृद्धि के लिए वह सदैव प्रयत्नशील रहता है। ज्ञान की एक किरण मिलने की भी जहाँ उसे आशा होती है वहाँ जाने में वह आलस्य नहीं करता। विद्वानों के व्याख्यान एवं वाद- विवाद से वह अपने ज्ञान-भंडार को भरता रहता है। शशिभूषण जिज्ञासु है। विभिन्न विषयों के अध्यापकों से प्रश्न पूछ-पूछ कर अपनी शंकाओं का समाधान एवं कठिनाइयों का निराकरण करता रहता है। ऐसा करने में उसे तनिक भी संकोच नहीं है।

इस गद्यांश का केंद्रीय विषय क्या है?

(1) नैतिक शिक्षा की आलोचना
(2) विज्ञान का विकास
(3) **आदर्श विद्यार्थी का महत्व ✔**
(4) विद्यालय की समस्याएँ

Answer Key / उत्तर कुंजी

1 2	**2** 3	**3** 4	**4** 1	**5** 2	**6** 2	**7** 1	**8** 4	**9** 4	**10** 4	**11** 2	**12** 3	**13** 4	**14** 3	**15** 1
16 2	**17** 4	**18** 3	**19** 4	**20** 3	**21** 4	**22** 1	**23** 3	**24** 3	**25** 3	**26** 1	**27** 4	**28** 2	**29** 3	**30** 4
31 4	**32** 1	**33** 3	**34** 4	**35** 4	**36** 2	**37** 2	**38** 1	**39** 1	**40** 1	**41** 3	**42** 2	**43** 1	**44** 1	**45** 1
46 1	**47** 3	**48** 1	**49** 4	**50** 3	**51** 3	**52** 3	**53** 3	**54** 4	**55** 3	**56** 3	**57** 2	**58** 2	**59** 2	**60** 1
61 3	**62** 3	**63** 1	**64** 2	**65** 3	**66** 2	**67** 3	**68** 2	**69** 2	**70** 1	**71** 2	**72** 3	**73** 3	**74** 3	**75** 4
76 3	**77** 4	**78** 1	**79** 4	**80** 3	**81** 3	**82** 1	**83** 4	**84** 1	**85** 1	**86** 3	**87** 1	**88** 1	**89** 2	**90** 4
91 4	**92** 3	**93** 3	**94** 3	**95** 1	**96** 1	**97** 2	**98** 1	**99** 1	**100** 3	**101** 2	**102** 4	**103** 1	**104** 3	**105** 3
106 1	**107** 4	**108** 3	**109** 1	**110** 1	**111** 1	**112** 2	**113** 2	**114** 1	**115** 3	**116** 3	**117** 2	**118** 2	**119** 3	**120** 2
121 1	**122** 1	**123** 3	**124** 2	**125** 3	**126** 3	**127** 4	**128** 1	**129** 2	**130** 1	**131** 3	**132** 4	**133** 2	**134** 2	**135** 4
136 2	**137** 3	**138** 3	**139** 4	**140** 1	**141** 2	**142** 3	**143** 1	**144** 2	**145** 3	**146** 4	**147** 1	**148** 2	**149** 2	**150** 4
151 3	**152** 3	**153** 2	**154** 4	**155** 4	**156** 3	**157** 2	**158** 3	**159** 3	**160** 2	**161** 3	**162** 3	**163** 3	**164** 3	**165** 4
166 4	**167** 4	**168** 1	**169** 3	**170** 3	**171** 3	**172** 2	**173** 2	**174** 1	**175** 2	**176** 3	**177** 4	**178** 1	**179** 1	**180** 1
181 1	**182** 2	**183** 3	**184** 4	**185** 4	**186** 1	**187** 2	**188** 2	**189** 4	**190** 1	**191** 1	**192** 4	**193** 2	**194** 3	**195** 3
196 2	**197** 4	**198** 4	**199** 4	**200** 3										

GOVT. OF NCT OF DELHI
Delhi Subordinate Services Selection Board
FC-18, Institutional Area, Karkardooma, Delhi – 110092.
www.dsssb.delhigovt.nic.in

Participant ID	[redacted]
Participant Name	[redacted]
Test Center Name	Aadarsh Pariksha Kendra CENTER B - Gate No 2 - Noida Sector 64
Test Date	02/03/2026
Test Time	1:00 PM - 3:00 PM
Subject	Assistant Security Officer

Section : **General intelligence and Reasoning Ability**

Q.1 **Refer to the following letter series and answer the question that follows. Counting to be done from left to right only.**

(Left) Z A X C V E T G R I P L N K (Right)

How many consonants are there, which are immediately preceded by vowels?

Ans
✗ 1. Two
✓ 2. Three
✗ 3. Five
✗ 4. Four

Question ID : **441009778468**
Option 1 ID : **4410093067875**
Option 2 ID : **4410093067876**
Option 3 ID : **4410093067878**
Option 4 ID : **4410093067877**

Q.2 **Seven boxes R,A,C, K,E,T and S are kept one over the other but not necessarily in the same order.**
Only four boxes are kept between E and K. Only R is kept above E. Only two boxes are kept between A and T. C is kept immediately above S. T is not kept immediately above C.
Which box is kept fourth from the top?

Ans
✗ 1. K
✗ 2. A
✓ 3. C
✗ 4. R

Question ID : **4410091463277**
Option 1 ID : **4410095781245**
Option 2 ID : **4410095781243**
Option 3 ID : **4410095781244**
Option 4 ID : **4410095781242**

QuickSarkari.com | WhatsApp Channel | Telegram: t.me/quick_sarkari

Q.3 Refer to the following letter series and answer the question. Counting to be done from left to right only.
(Left) K L M N P Q R S T U V W X (Right)
How many such letters are there which are immediately preceded by a consonant and also immediately followed by a vowel?

Ans
✗ 1. Three
✗ 2. Two
✗ 3. None
✓ 4. One

Question ID : **441009778464**
Option 1 ID : **4410093067862**
Option 2 ID : **4410093067861**
Option 3 ID : **4410093067859**
Option 4 ID : **4410093067860**

Q.4 In a code language,
'A + B' means 'A is the son of B'
'A - B' means 'A is the brother of B'
'A x B' means 'A is the wife of B'
'A & B' means 'A is the father of B'

Which of the following mean that G is the brother of P?
I. G + F - K x L & P
II. G + F x K & L - P
III. G - F + K x L & P
IV. G x F + K & L - P

Ans
✓ 1. Both II and III
✗ 2. Both I and IV
✗ 3. Both II and IV
✗ 4. Both I and III

Question ID : **4410091510346**
Option 1 ID : **4410095965896**
Option 2 ID : **4410095965897**
Option 3 ID : **4410095965898**
Option 4 ID : **4410095965899**

Q.5 Each vowel in the word CONTAIN is changed to the letter immediately following it in the English alphabetical order and each consonant is changed to the letter immediately preceding it in the English alphabetical order. Which of the following letters will be fifth from the left in the new group of letters thus formed?

Ans
✗ 1. L
✓ 2. B
✗ 3. N
✗ 4. M

Question ID : **441009783037**
Option 1 ID : **4410093086154**
Option 2 ID : **4410093086153**
Option 3 ID : **4410093086152**
Option 4 ID : **4410093086151**

Quick Sarkari

Q.6 W,I,N,T,E,R and S are sitting around a circular table facing the centre of the table.
Only one person sits between T and W when counted from the left of W. N sits third to the right of S. E sits third to the left of R. N sits to the immediate right of E.
I is not an immediate neighbor of E.
How many people sit between I and W when counted from the right of I?

Ans
✗ 1. Four
✓ 2. Three
✗ 3. Two
✗ 4. One

Question ID : **4410091463160**
Option 1 ID : **4410095780781**
Option 2 ID : **4410095780780**
Option 3 ID : **4410095780779**
Option 4 ID : **4410095780778**

Q.7 C, O, B, R, A and S live on six different floors of the same building. The lowermost floor in the building is numbered 1, the floor above it, number 2 and so on till the topmost floor is numbered 6.
Only two people lives between B and S. Only C lives above A.R lives on an even numbered floor. B lives on the lowermost floor.
How many people live between O and C?

Ans
✓ 1. Two
✗ 2. Three
✗ 3. Four
✗ 4. One

Question ID : **4410091463366**
Option 1 ID : **4410095781599**
Option 2 ID : **4410095781600**
Option 3 ID : **4410095781601**
Option 4 ID : **4410095781598**

Q.8 In a certain code language, 'PACE' is coded as '1835' and 'CAME' is coded as '9315'.What is the code for 'M' in the given code language?

Ans
✗ 1. 1
✗ 2. 3
✗ 3. 8
✓ 4. 9

Question ID : **4410091463393**
Option 1 ID : **4410095781709**
Option 2 ID : **4410095781708**
Option 3 ID : **4410095781707**
Option 4 ID : **4410095781706**

QuickSarkari.com | WhatsApp Channel | Telegram: t.me/quick_sarkari

Q.9 S is the only daughter of T. T is married to U. V is the son of U. W is the brother of V. How is S related to W?

Ans
✗ 1. Sister's daughter
✗ 2. Father's sister
✗ 3. Mother's sister
✓ 4. Sister

Question ID : **4410091737687**
Option 1 ID : **4410096852464**
Option 2 ID : **4410096852466**
Option 3 ID : **4410096852465**
Option 4 ID : **4410096852463**

Q.10 Seven people F, G, H, Q, R, S and T are sitting in a straight line facing north. Only two people sit between T and R. R sits to the immediate left of H. Only two people sit to the right of H. Only two people sit between H and S. F sits to the immediate right of G. Who sits at third position from the left end of the line?

Ans
✗ 1. G
✗ 2. S
✗ 3. T
✓ 4. Q

Question ID : **441009788338**
Option 1 ID : **4410093107354**
Option 2 ID : **4410093107352**
Option 3 ID : **4410093107353**
Option 4 ID : **4410093107351**

Q.11 Seven people, G, L, A, M, O, U and R are sitting in a row, facing north.
Only two people sit to the left of R. Only three people sit between R and L. U sits second to the right of R. Only two people sit between U and O. G sits at some place to the right of A but at some place to the left of M.
How many people sit to the right of G?

Ans
✗ 1. Two
✓ 2. Three
✗ 3. Four
✗ 4. One

Question ID : **4410091463225**
Option 1 ID : **4410095781039**
Option 2 ID : **4410095781040**
Option 3 ID : **4410095781041**
Option 4 ID : **4410095781038**

QuickSarkari.com | WhatsApp Channel | Telegram: t.me/quick_sarkari

Q.12 Dhruv ranked 9th from the bottom and 6th from the top in his class. How many students are there in his class?

Ans
✗ 1. 12
✗ 2. 13
✓ 3. 14
✗ 4. 11

Question ID : **4410091463298**
Option 1 ID : **4410095781327**
Option 2 ID : **4410095781328**
Option 3 ID : **4410095781329**
Option 4 ID : **4410095781326**

Q.13 Refer to the following letter series and answer the question. Counting to be done from left to right only.
(Left) N A J K I A B C U E T X A I R A W U Q V S L (Right)
How many such vowels are there each of which is immediately preceded by a consonant and also immediately followed by a vowel?

Ans
✗ 1. None
✗ 2. Two
✗ 3. One
✓ 4. Three

Question ID : **441009792138**
Option 1 ID : **4410093122551**
Option 2 ID : **4410093122553**
Option 3 ID : **4410093122552**
Option 4 ID : **4410093122554**

Q.14 Each of P, I, C, T, U, R and E has an exam on a different day of a week starting from Monday and ending on Sunday of the same week. Only two people have exam between C and T. Only two people have exam between I and P. Only two people have exam between E and P. No one has exam after E. U has exam on one of the days before R. T has exam immediately after R. Who has exam on Wednesday?

Ans
✗ 1. P
✗ 2. I
✓ 3. C
✗ 4. T

Question ID : **4410091463319**
Option 1 ID : **4410095781410**
Option 2 ID : **4410095781411**
Option 3 ID : **4410095781412**
Option 4 ID : **4410095781413**

QuickSarkari.com | WhatsApp Channel | Telegram: t.me/quick_sarkari

Q.15 Refer to the following letter, symbol series and answer the question. Counting to be done from left to right only
(Left) G € € R L $ Q € T $ W € Y B % J % I V % R © (Right)
How many such symbol are there each of which is immediately preceded by a letter and also immediately followed by a letter?

Ans
✔ 1. Seven
✘ 2. Eight
✘ 3. Six
✘ 4. Nine

Question ID : **441009790807**
Option 1 ID : **4410093117227**
Option 2 ID : **4410093117228**
Option 3 ID : **4410093117229**
Option 4 ID : **4410093117230**

Q.16 Refer to the following letter series and answer the question that follows. Counting to be done from left to right only.

(Left) B M I I Y D X E H R C I G J X Z A N T U E W (Right)

How many such consonants are there, each of which is immediately preceded by a consonant and also immediately followed by a vowel?

Ans
✘ 1. Four
✔ 2. Five
✘ 3. Seven
✘ 4. Six

Question ID : **441009778820**
Option 1 ID : **4410093069285**
Option 2 ID : **4410093069283**
Option 3 ID : **4410093069286**
Option 4 ID : **4410093069284**

Q.17 Refer to the following series and answer the question (all numbers are single-digit numbers only) Counting to be done from left to right only.
(Left) 1 6 3 7 4 9 5 2 8 7 1 6 4 3 9 7 5 8 2 4 7 1 2 3 9 8 5 (Right)
How many such even digits are there each of which is immediately followed by an odd digit and also immediately preceded by another odd digit?

Ans
✘ 1. Three
✘ 2. Two
✘ 3. One
✔ 4. Four

Question ID : **441009795114**
Option 1 ID : **4410093134457**
Option 2 ID : **4410093134456**
Option 3 ID : **4410093134455**
Option 4 ID : **4410093134458**

Q.18 Refer to the following letter series and answer the question. Counting to be done from left to right only.
(Left) Y U J Z Z H U K X E Y K A O O E N W J (Right)
How many such vowels are there each of which is immediately preceded by a consonant and also immediately followed by a vowel ?

Ans
✗ 1. Four
✗ 2. Three
✓ 3. One
✗ 4. Two

Question ID : **441009778103**
Option 1 ID : **4410093066418**
Option 2 ID : **4410093066417**
Option 3 ID : **4410093066415**
Option 4 ID : **4410093066416**

Q.19 W,I,N,T,E,R and S are sitting around a circular table facing the centre of the table. Only one person sits between I and N when counted from the left of N. W sits third to the right of S. R sits third to the left of E. W sits to the immediate right of R. T is not an immediate neighbor of R.
Who sits second to the left of I?

Ans
✗ 1. E
✗ 2. R
✗ 3. W
✓ 4. T

Question ID : **4410091463179**
Option 1 ID : **4410095780856**
Option 2 ID : **4410095780857**
Option 3 ID : **4410095780854**
Option 4 ID : **4410095780855**

Q.20 In a certain code language, 'CRAB' is coded as '8147' and 'CRAM' is coded as '4851'. What is the code for 'M' in the given code language?

Ans
✗ 1. 1
✗ 2. 8
✓ 3. 5
✗ 4. 4

Question ID : **441009795962**
Option 1 ID : **4410093137848**
Option 2 ID : **4410093137850**
Option 3 ID : **4410093137847**
Option 4 ID : **4410093137849**

Section : **General intelligence and Reasoning Ability1**

QuickSarkari.com | WhatsApp Channel | Telegram: t.me/quick_sarkari

Q.1 In the following triad, each group of letters is related to the subsequent one following a certain logic. Select from the given options, the one that follows the same logic.

CARS - ARCS - SRAC
DAKE - AKDE - EKAD

Ans
✗ 1. GIND - INGD - INDG
✗ 2. POST - PSOT - TSOP
✗ 3. WALK - AWLK - KALW
✓ 4. FEAT - EAFT - TAEF

Question ID : **441009755853**
Option 1 ID : **4410092977408**
Option 2 ID : **4410092977406**
Option 3 ID : **4410092977407**
Option 4 ID : **4410092977405**

Q.2 9 is related to 22 following a certain logic. Following the same logic, 13 is related to 30. To which of the following is 17 related, following the same logic?

(NOTE: Operations should be performed on the whole numbers, without breaking down the numbers into their constituent digits. E.g. 13 – Operations on 13 such as adding/subtracting/multiplying to 13 can be performed. Breaking down 13 into 1 and 3 and then performing mathematical operations on 1 and 3 is not allowed.)

Ans
✓ 1. 38
✗ 2. 50
✗ 3. 46
✗ 4. 42

Question ID : **441009590784**
Option 1 ID : **4410092318249**
Option 2 ID : **4410092318252**
Option 3 ID : **4410092318250**
Option 4 ID : **4410092318251**

Q.3 Based on the alphabetical order, three of the following four are alike in a certain way and thus form a group. Which is the one that does not belong to that group? (Note: The odd man out is not based on the number of consonants/vowels or their position in the letter cluster)

Ans
✗ 1. PRM
✗ 2. IKF
✓ 3. DLP
✗ 4. SUP

Question ID : **441009788491**
Option 1 ID : **4410093107964**
Option 2 ID : **4410093107966**
Option 3 ID : **4410093107965**
Option 4 ID : **4410093107963**

QuickSarkari.com | WhatsApp Channel | Telegram: t.me/quick_sarkari

Q.4 If 1 is added to each odd digit and 2 is subtracted from each even digit in the number 6178325, what will be the sum of the digits which are second from the left and third from the right?

Ans
✗ 1. 5
✗ 2. 4
✓ 3. 6
✗ 4. 7

Question ID : **4410091522437**
Option 1 ID : **4410096012864**
Option 2 ID : **4410096012865**
Option 3 ID : **4410096012862**
Option 4 ID : **4410096012863**

Q.5 What will come in the place of '?' in the following equation, if '+' and '–' are interchanged and '×' and '÷' are interchanged?

79 + 7 ÷ 9 – 98 × 7 = ?

Ans
✗ 1. 28
✗ 2. 26
✓ 3. 30
✗ 4. 33

Question ID : **441009553864**
Option 1 ID : **4410092170771**
Option 2 ID : **4410092170770**
Option 3 ID : **4410092170772**
Option 4 ID : **4410092170773**

Q.6 What should come in place of ? in the given series based on the English alphabetical order?
ZXW YWV XVU WUT ?

Ans
✓ 1. VTS
✗ 2. VWY
✗ 3. VSR
✗ 4. VUR

Question ID : **4410091522574**
Option 1 ID : **4410096013417**
Option 2 ID : **4410096013420**
Option 3 ID : **4410096013419**
Option 4 ID : **4410096013418**

QuickSarkari.com | WhatsApp Channel | Telegram: t.me/quick_sarkari

Q.7 **Based on the English alphabetical order, three of the following four letter cluster pairs are alike in a certain way and thus form a group. Which is the one that does not belong to that group?**
(Note: The odd one out is not based on the number of consonants/vowels or their position in the letter cluster)

Ans
✗ 1. CA–BZ
✗ 2. US–TR
✗ 3. PN–OM
✓ 4. QO–OP

Question ID : **441009792670**
Option 1 ID : **4410093124680**
Option 2 ID : **4410093124682**
Option 3 ID : **4410093124681**
Option 4 ID : **4410093124679**

Q.8 **Based on the English alphabetical order, three of the following four letter cluster pairs are alike in a certain way and thus form a group. Which is the one that does not belong to that group?**
(Note: The odd man out is not based on the number of consonants/vowels or their position in the letter cluster)

Ans
✗ 1. XL - BP
✓ 2. FA - JG
✗ 3. JC - NG
✗ 4. ZR - DV

Question ID : **441009792043**
Option 1 ID : **4410093122171**
Option 2 ID : **4410093122173**
Option 3 ID : **4410093122172**
Option 4 ID : **4410093122174**

Quick Sarkari

Q.9 **Select the correct mirror image of the given figure when the mirror is placed at PQ as shown below.**



Ans

✗ 1. 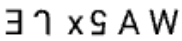

✗ 2. 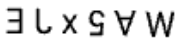

✓ 3. 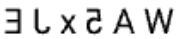

✗ 4. 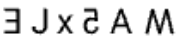

Question ID : **4410091482940**
Option 1 ID : **4410095858727**
Option 2 ID : **4410095858728**
Option 3 ID : **4410095858726**
Option 4 ID : **4410095858725**

Q.10 **Select the pair which follows the same pattern as that followed by the two set of pairs given below. Both pairs follow the same pattern.**
LIF–BYV
GDA–WTQ

Ans

✗ 1. WTQ–LJF

✗ 2. WSO–MJG

✗ 3. WSO–LIF

✓ 4. WTQ–MJG

Question ID : **441009790899**
Option 1 ID : **4410093117596**
Option 2 ID : **4410093117597**
Option 3 ID : **4410093117598**
Option 4 ID : **4410093117595**

Q.11 **If 'A' stands for '÷', 'B' stands for '×', 'C' stands for '+' and 'D' stands for '–', what will come in place of the question mark '?' in the following equation?**

9 A 12 B 44 D 44 C 24 = ?

Ans

✗ 1. 11

✗ 2. 15

✗ 3. 14

✓ 4. 13

Question ID : **4410091522329**
Option 1 ID : **4410096012418**
Option 2 ID : **4410096012417**
Option 3 ID : **4410096012419**
Option 4 ID : **4410096012416**

QuickSarkari.com | WhatsApp Channel | Telegram: t.me/quick_sarkari

Q.12 Select the set in which the numbers are related in the same way as are the numbers of the following sets.

(NOTE: Operations should be performed on the whole numbers, without breaking down the numbers into its constituent digits. E.g. 13 – Operations on 13 such as adding / subtracting /multiplying etc. to 13 can be performed. Breaking down 13 into 1 and 3 and then performing mathematical operations on 1 and 3 is not allowed.)

(5, 11, 7)
(9, 19, 15)

Ans
✔ 1. (12, 25, 21)
✘ 2. (8, 14, 10)
✘ 3. (7, 13, 9)
✘ 4. (11, 21, 17)

Question ID : **441009590081**
Option 1 ID : **4410092315440**
Option 2 ID : **4410092315438**
Option 3 ID : **4410092315437**
Option 4 ID : **4410092315439**

Q.13 TVXV is related to XZBZ in a certain way based on the English alphabetical order. In the same way, HJLJ is related to LNPN. To which of the following is EGIG related to, following the same logic?

Ans
✘ 1. IKLK
✘ 2. ILLP
✔ 3. IKMK
✘ 4. IJLK

Question ID : **4410091475793**
Option 1 ID : **4410095830470**
Option 2 ID : **4410095830468**
Option 3 ID : **4410095830467**
Option 4 ID : **4410095830469**

Q.14 Select the pair which follows the same pattern as that followed by the two set of pairs given below. Both pairs follow the same pattern.
FNS : BJO
XNH : TJD

Ans
✘ 1. DNS :BLQ
✘ 2. GOU : CMR
✘ 3. EOT : ISX
✔ 4. EOT : AKP

Question ID : **441009790279**
Option 1 ID : **4410093115118**
Option 2 ID : **4410093115117**
Option 3 ID : **4410093115115**
Option 4 ID : **4410093115116**

Quick Sarkari

Q.15 14 is related to 392 following a certain logic. Following the same logic, 18 is related to 648. To which of the following is 24 related, following the same logic?

(NOTE: Operations should be performed on the whole numbers, without breaking down the numbers into its constituent digits. E.g. 13 – Operations on 13 such as adding /subtracting /multiplying etc. to 13 can be performed. Breaking down 13 into 1 and 3 and then performing mathematical operations on 1 and 3 is not allowed.)

Ans
✗ 1. 1622
✗ 2. 1782
✗ 3. 1842
✓ 4. 1152

Question ID : **441009590892**
Option 1 ID : **4410092318682**
Option 2 ID : **4410092318684**
Option 3 ID : **4410092318683**
Option 4 ID : **4410092318681**

Q.16 What should come in place of ? in the given series based on the English alphabetical order?

TUS RSQ PQO NOM ?

Ans
✗ 1. LKM
✓ 2. LMK
✗ 3. KLM
✗ 4. KML

Question ID : **4410091259478**
Option 1 ID : **4410094970777**
Option 2 ID : **4410094970775**
Option 3 ID : **4410094970774**
Option 4 ID : **4410094970776**

Q.17 6 is related to 19 following a certain logic. Following the same logic, 11 is related to 29. To which of the following is 17 related, following the same logic?

(NOTE: Operations should be performed on the whole numbers, without breaking down the numbers into their constituent digits. E.g. 13 – Operations on 13 such as adding/subtracting/multiplying to 13 can be performed. Breaking down 13 into 1 and 3 and then performing mathematical operations on 1 and 3 is not allowed.)

Ans
✗ 1. 70
✓ 2. 41
✗ 3. 47
✗ 4. 52

Question ID : **441009590779**
Option 1 ID : **4410092318230**
Option 2 ID : **4410092318231**
Option 3 ID : **4410092318229**
Option 4 ID : **4410092318232**

Q.18 What will come in the place of '?' in the following equation if '+' and '-' are interchanged and 'x' and '÷' are interchanged?
46 × 8 ÷ 20 - 11 + 33 = ?

Ans
✔ 1. 93
✘ 2. 95
✘ 3. 91
✘ 4. 94

Question ID : **4410091522524**
Option 1 ID : **4410096013217**
Option 2 ID : **4410096013218**
Option 3 ID : **4410096013219**
Option 4 ID : **4410096013220**

QuickSarkari

Q.19 Identify the figure given in the options which when put in place of ? will logically complete the series.

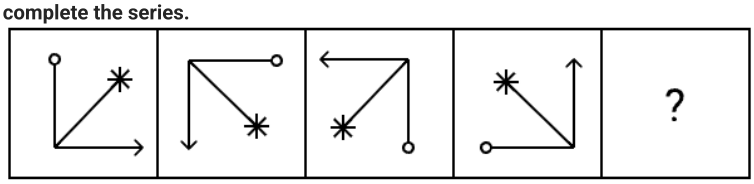

Ans

✔ 1.

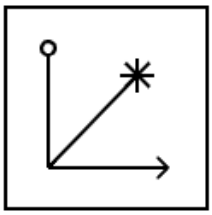

✗ 2.

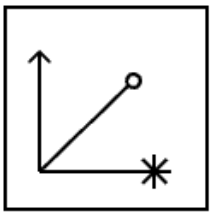

✗ 3.

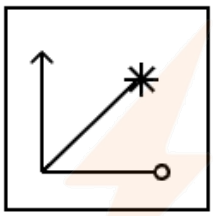

✗ 4.

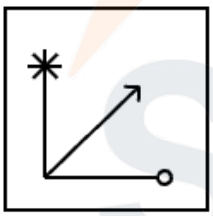

Question ID : **4410091483010**
Option 1 ID : **4410095859001**
Option 2 ID : **4410095859003**
Option 3 ID : **4410095859002**
Option 4 ID : **4410095859004**

QuickSarkari.com | WhatsApp Channel | Telegram: t.me/quick_sarkari

Q.20 Below are given two sets of numbers. In each set of numbers, a certain mathematical operation on the first number results in the second number. Similarly, certain mathematical operation on the second number results in the third number and so on. Which of the given options follows the same set of operations as in question?

(NOTE – A two/three digit number cannot be broken into individual digits for operations e.g. if 37 is followed by 10, the operation cannot be 3+7 as a two-digit number cannot be broken into individual digits.)

18 – 54 – 79 – 237; 23 – 69 – 94 – 282

Ans
✔ 1. 14 – 42 – 67 – 201
✘ 2. 12 – 36 – 65 – 195
✘ 3. 20 – 60 – 95 – 285
✘ 4. 28 – 84 – 104 – 312

Question ID : **441009590229**
Option 1 ID : **4410092316030**
Option 2 ID : **4410092316032**
Option 3 ID : **4410092316031**
Option 4 ID : **4410092316029**

Section : **General Awareness**

Q.1 What was the main reason behind the Santhal Rebellion of 1855–56?

Ans
✘ 1. Demand for political representation in British councils
✘ 2. Protest against railway construction in tribal areas
✔ 3. Resistance to exploitation by moneylenders and landlords
✘ 4. Opposition to the introduction of English education

Question ID : **4410091545530**
Option 1 ID : **4410096105139**
Option 2 ID : **4410096105142**
Option 3 ID : **4410096105140**
Option 4 ID : **4410096105141**

Q.2 Which princely state, ruled by Nawab Muhammad Mahabat Khan III, decided to accede to Pakistan after India gained independence in 1947?

Ans
✘ 1. Baroda
✔ 2. Junagadh
✘ 3. Mysore
✘ 4. Kashmir

Question ID : **4410091567371**
Option 1 ID : **4410096190784**
Option 2 ID : **4410096190782**
Option 3 ID : **4410096190781**
Option 4 ID : **4410096190783**

Q.3 **Which House of the State Legislature is known as the Legislative Assembly and is the popular, directly elected House?**

Ans
✔ 1. Vidhan Sabha
✘ 2. Vidhan Parishad
✘ 3. Zila Parishad
✘ 4. Rajya Sabha

Question ID : **4410091542994**
Option 1 ID : **4410096095032**
Option 2 ID : **4410096095035**
Option 3 ID : **4410096095033**
Option 4 ID : **4410096095034**

Q.4 **Who is the real executive authority in the Union Government and acts as the head of the Council of Ministers?**

Ans
✔ 1. The Prime Minister
✘ 2. The President of India
✘ 3. The Vice-President of India
✘ 4. The Speaker of the Lok Sabha

Question ID : **4410091537812**
Option 1 ID : **4410096074515**
Option 2 ID : **4410096074517**
Option 3 ID : **4410096074518**
Option 4 ID : **4410096074516**

Q.5 **Market Equilibrium is achieved when _____.**

Ans
✔ 1. Quantity demanded equals quantity supplied at the prevailing price
✘ 2. Consumers are willing to pay the highest possible price
✘ 3. Quantity demanded exceeds quantity supplied at the prevailing price
✘ 4. Quantity supplied exceeds quantity demanded at the prevailing price

Question ID : **4410091543108**
Option 1 ID : **4410096095476**
Option 2 ID : **4410096095479**
Option 3 ID : **4410096095477**
Option 4 ID : **4410096095478**

Q.6 **How does uneven heating of the Earth's surface contribute to rainfall patterns?**

Ans
✔ 1. It creates pressure differences that drive moist winds
✘ 2. It directly converts water vapour into clouds
✘ 3. It reduces evaporation from oceans
✘ 4. It prevents condensation from occurring

Question ID : **4410091581336**
Option 1 ID : **4410096246571**
Option 2 ID : **4410096246572**
Option 3 ID : **4410096246573**
Option 4 ID : **4410096246574**

Q.7 चालू खाते में घाटे को किस रूप में दर्शाया जा सकता है?

Ans
✗ 1. प्राप्तियाँ = 0 = भुगतान
✗ 2. प्राप्तियाँ = भुगतान
✓ 3. प्राप्तियाँ < भुगतान
✗ 4. प्राप्तियाँ > भुगतान

Question ID : **441009627335**
Option 1 ID : **4410092463495**
Option 2 ID : **4410092463494**
Option 3 ID : **4410092463492**
Option 4 ID : **4410092463493**

Q.8 Which geographical characteristic most effectively differentiates the Eastern Coastal Plains from the Western Coastal Plains of India?

Ans
✓ 1. The eastern coast is wider and shaped by extensive deltaic formations
✗ 2. The eastern coast is fragmented and discontinuous
✗ 3. The western coast is primarily influenced by river deposition
✗ 4. The western coast occupies a larger surface area

Question ID : **4410091586097**
Option 1 ID : **4410096265444**
Option 2 ID : **4410096265446**
Option 3 ID : **4410096265445**
Option 4 ID : **4410096265447**

Q.9 The pre-monsoon showers called 'Mango showers' are seen in which of the following states in India?

Ans
✗ 1. Jammu and Kashmir
✗ 2. Sikkim
✗ 3. Gujarat
✓ 4. Kerala

Question ID : **4410091535765**
Option 1 ID : **4410096066296**
Option 2 ID : **4410096066298**
Option 3 ID : **4410096066295**
Option 4 ID : **4410096066297**

Quick Sarkari

Q.10 **Which of the following is a key component used to calculate the Human Development Index (HDI), demonstrating the link between growth and people's well-being?**

Ans
✗ 1. Literacy rate of the adult population
✗ 2. Average years of schooling
✓ 3. Gross National Income (GNI) per capita
✗ 4. Life expectancy at birth

Question ID : **4410091543056**
Option 1 ID : **4410096095273**
Option 2 ID : **4410096095275**
Option 3 ID : **4410096095272**
Option 4 ID : **4410096095274**

Q.11 **The Sannyasi–Fakir Rebellion began soon after which major event in Bengal?**

Ans
✗ 1. Permanent Settlement of 1793
✗ 2. Great flood of 1765
✓ 3. Famine of 1770
✗ 4. Palashi Battle of 1757

Question ID : **4410091545699**
Option 1 ID : **4410096105802**
Option 2 ID : **4410096105800**
Option 3 ID : **4410096105801**
Option 4 ID : **4410096105799**

Q.12 **The President of India can seek the opinion of the Supreme Court on any question of law or fact of public importance. This power is known as the Supreme Court's _____.**

Ans
✗ 1. Writ Jurisdiction
✗ 2. Appellate Jurisdiction
✓ 3. Advisory Jurisdiction
✗ 4. Review Jurisdiction

Question ID : **4410091540808**
Option 1 ID : **4410096086509**
Option 2 ID : **4410096086510**
Option 3 ID : **4410096086507**
Option 4 ID : **4410096086508**

QuickSarkari

Q.13 The six Fundamental Rights guaranteed to the citizens are enshrined in which part of the Indian Constitution?

Ans
✗ 1. Part I
✗ 2. Part IV
✓ 3. Part III
✗ 4. Part II

Question ID : **4410091537744**
Option 1 ID : **4410096074238**
Option 2 ID : **4410096074236**
Option 3 ID : **4410096074235**
Option 4 ID : **4410096074237**

Q.14 लोक अदालत के निर्णय के बारे में निम्नलिखित में से कौन-सा कथन सही है?

Ans
✗ 1. यह तभी बाध्यकारी होता है जब सर्वोच्च न्यायालय द्वारा इसकी पुष्टि की जाती है।
✗ 2. यदि कोई पक्ष असंतुष्ट है, तो इसके फैसले को उच्च न्यायालय में चुनौती दी जा सकती है।
✗ 3. निर्णय, सलाहकारी होता है और कानूनी रूप से बाध्यकारी नहीं होता है।
✓ 4. यह अंतिम होता है और दीवानी अदालत के फैसले की तरह सभी पक्षों पर कानूनी रूप से बाध्यकारी होता है।

Question ID : **4410091540746**
Option 1 ID : **4410096086266**
Option 2 ID : **4410096086265**
Option 3 ID : **4410096086264**
Option 4 ID : **4410096086263**

Q.15 What was the primary purpose of the English East India Company when it was formed?

Ans
✗ 1. To establish political rule in India
✗ 2. To defeat the Mughal Empire
✓ 3. To promote trade with the East
✗ 4. To spread Christianity

Question ID : **4410091540187**
Option 1 ID : **4410096084035**
Option 2 ID : **4410096084038**
Option 3 ID : **4410096084036**
Option 4 ID : **4410096084037**

Q.16 Who was the first European to reach India by an all-sea route?

Ans
✗ 1. Ferdinand Magellan
✗ 2. Pedro Álvares Cabral
✓ 3. Vasco da Gama
✗ 4. Christopher Columbus

Question ID : **4410091540103**
Option 1 ID : **4410096083727**
Option 2 ID : **4410096083729**
Option 3 ID : **4410096083728**
Option 4 ID : **4410096083730**

Q.17 **Which of the following is the role of exchange rate in an open economy?**

Ans
✗ 1. Regulating the government spending
✓ 2. Influencing the international trade and capital flows
✗ 3. Controlling the interest rates
✗ 4. Determining the rate of inflation

Question ID : **441009627461**
Option 1 ID : **4410092463996**
Option 2 ID : **4410092463998**
Option 3 ID : **4410092463999**
Option 4 ID : **4410092463997**

Q.18 **Which indicator best reflects the educational attainment of a population aged seven years and above in India?**

Ans
✗ 1. Population density
✓ 2. Literacy rate
✗ 3. Gross enrolment ratio
✗ 4. Dependency ratio

Question ID : **4410091587258**
Option 1 ID : **4410096269923**
Option 2 ID : **4410096269922**
Option 3 ID : **4410096269920**
Option 4 ID : **4410096269921**

Q.19 **What was the most significant change introduced by the 1991 economic reforms regarding the Industrial Sector?**

Ans
✗ 1. Permanent ban on all private investment in the economy.
✓ 2. Abolition of Industrial Licensing for most industries.
✗ 3. Complete government control over all industries.
✗ 4. Mandatory nationalization of all foreign companies.

Question ID : **4410091543040**
Option 1 ID : **4410096095215**
Option 2 ID : **4410096095212**
Option 3 ID : **4410096095213**
Option 4 ID : **4410096095214**

Quick Sarkari

Q.20 **Which geographical feature most distinctly characterises the Malabar Coast of India?**

Ans
✔ 1. Backwaters and lagoons
✘ 2. Fjords
✘ 3. Glacial valleys
✘ 4. Barchans

Question ID : **4410091584152**
Option 1 ID : **4410096257917**
Option 2 ID : **4410096257916**
Option 3 ID : **4410096257918**
Option 4 ID : **4410096257915**

Section : **General Awareness1**

Q.1 **Ministry of Youth Affairs and Sports aims to play a crucial role in youth development and sports promotion, aiming to steer the nation towards _____.**

Ans
✘ 1. Digital India 2045
✘ 2. Skill India 2050
✔ 3. Viksit Bharat by 2047
✘ 4. Make in India 2035

Question ID : **4410091533589**
Option 1 ID : **4410096057389**
Option 2 ID : **4410096057390**
Option 3 ID : **4410096057388**
Option 4 ID : **4410096057387**

Q.2 **Cream obtained from milk is primarily rich in which component?**

Ans
✘ 1. Milk sugar
✘ 2. Milk proteins
✔ 3. Milk fat
✘ 4. Milk minerals

Question ID : **4410091543712**
Option 1 ID : **4410096097907**
Option 2 ID : **4410096097908**
Option 3 ID : **4410096097906**
Option 4 ID : **4410096097909**

QuickSarkari.com | WhatsApp Channel | Telegram: t.me/quick_sarkari

Q.3 **According to the Periodic Labour Force Survey (PLFS) monthly estimates for August 2025, which of the following trends was observed at the all-India level between June and August 2025?**

Ans ✔ 1. Both the Labour Force Participation Rate (LFPR) and the Worker Population Ratio (WPR) increased

✘ 2. Both the Labour Force Participation Rate (LFPR) and the Worker Population Ratio (WPR) declined

✘ 3. The Labour Force Participation Rate (LFPR) increased while the Worker Population Ratio (WPR) declined

✘ 4. The Worker Population Ratio (WPR) grew, and the Labor Force Participation Rate (LFPR) stayed unchanged

Question ID : **4410091580672**
Option 1 ID : **4410096244026**
Option 2 ID : **4410096244028**
Option 3 ID : **4410096244029**
Option 4 ID : **4410096244027**

Q.4 **Who is the youngest recipient of Grammy awards, from India, till 2023?**

Ans ✘ 1. Zubin Mehta

✔ 2. Rickey Kej

✘ 3. Tanvi Shah

✘ 4. T.M.Krishna

Question ID : **441009608126**
Option 1 ID : **4410092387621**
Option 2 ID : **4410092387623**
Option 3 ID : **4410092387624**
Option 4 ID : **4410092387622**

Q.5 **Which of the following statements is INCORRECT regarding fats?**

Ans ✘ 1. Cholesterol is the source of derived lipid.

✘ 2. Fats and oils are concentrated sources of energy.

✔ 3. Triglycerides are the source of compound lipid.

✘ 4. Fats are substances that our body stores for future use.

Question ID : **44100985335**
Option 1 ID : **441009339057**
Option 2 ID : **441009339054**
Option 3 ID : **441009339056**
Option 4 ID : **441009339055**

QuickSarkari.com | WhatsApp Channel | Telegram: t.me/quick_sarkari

Q.6 **Who is appointed as the New Chairman of the Insurance Regulatory and Development Authority of India in July 2025?**

Ans
✗ 1. Shri Pramod Kumar Arora
✓ 2. Shri Ajay Seth
✗ 3. Smt Shalini Pandit
✗ 4. Shri Debasish Panda

Question ID : **4410091533347**
Option 1 ID : **4410096056343**
Option 2 ID : **4410096056345**
Option 3 ID : **4410096056342**
Option 4 ID : **4410096056344**

Q.7 **In which field event did Kenya's Faith Kipyegon set a world record at the Wanda Diamond League meeting in Eugene in July 2025?**

Ans
✗ 1. 5000 m
✗ 2. 2000 m
✓ 3. 1500 m
✗ 4. 800 m

Question ID : **4410091580767**
Option 1 ID : **4410096244401**
Option 2 ID : **4410096244400**
Option 3 ID : **4410096244399**
Option 4 ID : **4410096244398**

Q.8 **Which Bill prohibits harmful online money gaming services, advertisements, and financial transactions related to them?**

Ans
✗ 1. The National Digital Betting and Games Bill, 2025
✓ 2. Promotion and Regulation of Online Gaming Bill, 2025
✗ 3. The Digital Gaming and Betting Prohibition Bill, 2025
✗ 4. The Online Gambling Control Bill, 2025

Question ID : **4410091533939**
Option 1 ID : **4410096058959**
Option 2 ID : **4410096058961**
Option 3 ID : **4410096058962**
Option 4 ID : **4410096058960**

QuickSarkari.com | WhatsApp Channel | Telegram: t.me/quick_sarkari

Q.9 Elements in the same Group (vertical column) of the periodic table share similar properties because they have the same number of _____.

Ans
✗ 1. Neutrons
✓ 2. Valence electrons
✗ 3. Protons
✗ 4. Total electrons

Question ID : **441009625635**
Option 1 ID : **4410092456673**
Option 2 ID : **4410092456672**
Option 3 ID : **4410092456674**
Option 4 ID : **4410092456675**

Q.10 Who was appointed as the 53rd Chief Justice of India?

Ans
✓ 1. Justice Surya Kant
✗ 2. Justice Dhananjaya Y Chandrachud
✗ 3. Justice Sanjiv Khanna
✗ 4. Justice BV Nagarathna

Question ID : **4410091533903**
Option 1 ID : **4410096058818**
Option 2 ID : **4410096058817**
Option 3 ID : **4410096058816**
Option 4 ID : **4410096058815**

Q.11 Who was appointed as the Chief Executive Officer of Coal India Limited (CIL) in December 2025?

Ans
✗ 1. Dr Rajiv Mani
✓ 2. B Sairam
✗ 3. Dheeraj Mittal
✗ 4. B.P. Dubey

Question ID : **4410091533368**
Option 1 ID : **4410096056425**
Option 2 ID : **4410096056424**
Option 3 ID : **4410096056423**
Option 4 ID : **4410096056422**

Q.12 Amid fresh turmoil in Bangladesh and persistent threat from China in 2025, India has strengthened its eastern defences with three new garrisons for:

Ans
✗ 1. Palk Strait
✗ 2. Deesa Sector
✓ 3. Siliguri Corridor
✗ 4. Ladakh Plateau

Question ID : **4410091533876**
Option 1 ID : **4410096058715**
Option 2 ID : **4410096058716**
Option 3 ID : **4410096058717**
Option 4 ID : **4410096058718**

Quick Sarkari

Q.13 At the 2025 World Economic Forum, which former footballer was honoured with a Crystal Award for humanitarian work?

Ans
✗ 1. Clarence Seedorf
✗ 2. Zinedine Zidane
✓ 3. David Beckham
✗ 4. Ronaldo Nazário

Question ID : **4410091580754**
Option 1 ID : **4410096244349**
Option 2 ID : **4410096244346**
Option 3 ID : **4410096244347**
Option 4 ID : **4410096244348**

Q.14 Indian Classical Music is broadly divided into two main systems. The system that developed primarily in the Southern states of India is known as _____.

Ans
✗ 1. Hindustani Sangeet
✗ 2. Dhrupad Sangeet
✓ 3. Carnatic Sangeet
✗ 4. Gharana Sangeet

Question ID : **4410091543149**
Option 1 ID : **4410096095639**
Option 2 ID : **4410096095638**
Option 3 ID : **4410096095636**
Option 4 ID : **4410096095637**

Q.15 Which of the following films received the Best Feature Film award in the 71st National Film Awards 2025?

Ans
✗ 1. Major Dhan Singh Thapa
✗ 2. Jawan
✗ 3. Mrs. Chatterjee v/s Norway.
✓ 4. 12th Fail

Question ID : **4410091533441**
Option 1 ID : **4410096056729**
Option 2 ID : **4410096056727**
Option 3 ID : **4410096056728**
Option 4 ID : **4410096056726**

QuickSarkari.com | WhatsApp Channel | Telegram: t.me/quick_sarkari

Q.16 According to the World Bank's 2025 report (data for 2022–23), India's income inequality as measured by the Gini coefficient was approximately:

Ans
✗ 1. 30.5
✗ 2. 38.0
✓ 3. 25.5
✗ 4. 23.0

Question ID : **4410091580653**
Option 1 ID : **4410096243953**
Option 2 ID : **4410096243951**
Option 3 ID : **4410096243950**
Option 4 ID : **4410096243952**

Q.17 Pranav Ramji is a famous _____ player.

Ans
✗ 1. flute
✗ 2. sarod
✗ 3. harmonium
✓ 4. tabla

Question ID : **441009607860**
Option 1 ID : **4410092386557**
Option 2 ID : **4410092386560**
Option 3 ID : **4410092386558**
Option 4 ID : **4410092386559**

Q.18 Which regions will start their census earlier on 1 October 2026?

Ans
✓ 1. Ladakh, Jammu & Kashmir, Himachal Pradesh and Uttarakhand
✗ 2. Odisha, Manipur, Haryana and West Bengal
✗ 3. Kerala, Tamil Nadu, Punjab and Rajasthan
✗ 4. Karnataka, Maharashtra and Gujarat

Question ID : **4410091533189**
Option 1 ID : **4410096055707**
Option 2 ID : **4410096055708**
Option 3 ID : **4410096055706**
Option 4 ID : **4410096055709**

Q.19 In which of the following states did Indian archaeologists unearth 15 rare 10th–11th century idols in September 2025?

Ans
✗ 1. Telangana
✗ 2. Odisha
✗ 3. Gujarat
✓ 4. Madhya Pradesh

Question ID : **4410091533245**
Option 1 ID : **4410096055931**
Option 2 ID : **4410096055932**
Option 3 ID : **4410096055930**
Option 4 ID : **4410096055933**

Q.20 What was the theme of the "D.E.S.I.G.N. for BioE3 Challenge" launched by the Ministry of Science & Technology in December 2025?

Ans
✗ 1. Young Scientists Driving India's Biofuture
✗ 2. Innovation for Sustainable Bioeconomy Growth
✓ 3. Empowering Youth to Solve Critical Issues of their TIMES
✗ 4. Startups Driving India's Bio-Industrial Revolution

Question ID : **4410091570888**
Option 1 ID : **4410096204533**
Option 2 ID : **4410096204531**
Option 3 ID : **4410096204530**
Option 4 ID : **4410096204532**

Section : **Arithmetical and Numerical Ability**

Q.1 If P is a single digit number such that 6972P455 is divisible by 11, then the value of P is:

Ans
✗ 1. 3
✗ 2. 1
✓ 3. 2
✗ 4. 4

Question ID : **4410091556526**
Option 1 ID : **4410096148680**
Option 2 ID : **4410096148678**
Option 3 ID : **4410096148679**
Option 4 ID : **4410096148681**

Q.2 Find the simple interest (in ₹) on ₹3000 as a sum borrowed at 6% per year rate of interest for 2 years.1699

Ans
✓ 1. 360
✗ 2. 400
✗ 3. 320
✗ 4. 300

Question ID : **441009852981**
Option 1 ID : **4410093364896**
Option 2 ID : **4410093364897**
Option 3 ID : **4410093364899**
Option 4 ID : **4410093364898**

QuickSarkari.com | WhatsApp Channel | Telegram: t.me/quick_sarkari

Q.3 The simplified value of $48 \div 4 \times 3 - (6 + 2^2)$ is:

Ans
✗ 1. 38
✗ 2. 28
✗ 3. 84
✓ 4. 26

Question ID : **4410091511139**
Option 1 ID : **4410095968616**
Option 2 ID : **4410095968615**
Option 3 ID : **4410095968617**
Option 4 ID : **4410095968614**

Q.4 The cost of a sofa set increased from ₹18,200 to ₹19,600. Calculate the percentage increase (rounded off to two decimal places).4364

Ans
✓ 1. 7.69%
✗ 2. 8.99%
✗ 3. 8.69%
✗ 4. 7.99%

Question ID : **441009897677**
Option 1 ID : **4410093544778**
Option 2 ID : **4410093544781**
Option 3 ID : **4410093544780**
Option 4 ID : **4410093544779**

Q.5 In a test, B got 52 marks while A got 80 marks, out of 105 maximum marks. What percentage of A's marks was B's marks?

Ans
✓ 1. 65%
✗ 2. 76.19%
✗ 3. 153.85%
✗ 4. 105%

Question ID : **441009857272**
Option 1 ID : **4410093382060**
Option 2 ID : **4410093382063**
Option 3 ID : **4410093382061**
Option 4 ID : **4410093382062**

Quick Sarkari

Q.6 Simplify: $\frac{\sqrt[3]{2744}}{\sqrt[4]{256}} \times \frac{2}{42} \times 108$

Ans
✗ 1. 23
✗ 2. 24
✓ 3. 18
✗ 4. 26

Question ID : **441009575778**
Option 1 ID : **4410092258235**
Option 2 ID : **4410092258233**
Option 3 ID : **4410092258232**
Option 4 ID : **4410092258234**

Q.7 Sankalp invested some money in HDFC at 8% per annum rate of interest. What would be the corresponding simple interest (in ₹) if after 2 years, Sankalp got ₹286 as compound interest, considering annual compounding?8329

Ans
✓ 1. 275
✗ 2. 285
✗ 3. 290
✗ 4. 270

Question ID : **441009571903**
Option 1 ID : **4410092242732**
Option 2 ID : **4410092242734**
Option 3 ID : **4410092242735**
Option 4 ID : **4410092242733**

Q.8 The average expenditure of a teacher for the first four months of a year is ₹12,500 and for the next eight months it is ₹14,000. She saves ₹18,000 during the year. Find her average monthly income.

Ans
✓ 1. ₹15,000
✗ 2. ₹18,500
✗ 3. ₹16,250
✗ 4. ₹14,800

Question ID : **4410091523506**
Option 1 ID : **4410096017274**
Option 2 ID : **4410096017271**
Option 3 ID : **4410096017272**
Option 4 ID : **4410096017273**

QuickSarkari.com | WhatsApp Channel | Telegram: t.me/quick_sarkari

Q.9 **The following pie chart gives the expenditure per month of a family across different categories in terms of degrees.**
If the total amount spent in a month is ₹56,160, find the total amount spent by the family on housing loan and utilities together.

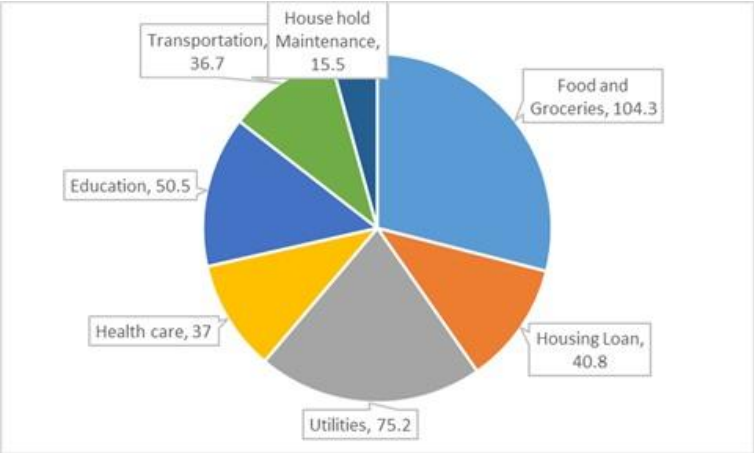

Ans
✗ 1. ₹21,622
✓ 2. ₹18,096
✗ 3. ₹16,787
✗ 4. ₹15,520

Question ID : **4410091523741**
Option 1 ID : **4410096018237**
Option 2 ID : **4410096018236**
Option 3 ID : **4410096018235**
Option 4 ID : **4410096018238**

Q.10 **The average number of visitors to a museum on Sundays is 2430, and on other days is 870. Find the average number of visitors per day in a 30-day month beginning with a Sunday.**

Ans
✗ 1. 1070
✗ 2. 950
✗ 3. 2200
✓ 4. 1130

Question ID : **4410091523507**
Option 1 ID : **4410096017276**
Option 2 ID : **4410096017277**
Option 3 ID : **4410096017275**
Option 4 ID : **4410096017278**

QuickSarkari.com | WhatsApp Channel | Telegram: t.me/quick_sarkari

Q.11 A juice shop has two barrels of thick mango milk shake. The first contains 25% mango juice and the rest milk. The second contains 50% mango juice. How much milk shake should the vendor mix from each of the containers so as to get 14 liters of milk shake such that the ratio of mango juice to milk is 3 : 5?

Ans
✗ 1. 10 liters, 4 liters
✗ 2. 6 liters, 8 liters
✗ 3. 8 liters, 6 liters
✓ 4. 7 liters, 7 liters

Question ID : **4410091523515**
Option 1 ID : **4410096017317**
Option 2 ID : **4410096017316**
Option 3 ID : **4410096017315**
Option 4 ID : **4410096017318**

Q.12 A vessel is completely filled with liquid A, out of which 11 litres of liquid A are drawn and is then filled with liquid B. This operation is performed three more times. The ratio of the quantity of liquid A now left in the vessel to that of liquid B is 81 : 175. What was the initial volume (in litres) of liquid A?1448

Ans
✗ 1. 41
✗ 2. 36
✓ 3. 44
✗ 4. 34

Question ID : **441009894761**
Option 1 ID : **4410093533115**
Option 2 ID : **4410093533117**
Option 3 ID : **4410093533114**
Option 4 ID : **4410093533116**

Q.13 The value of $\sqrt[3]{1728} + 4 \times 5 - 2^3$ is:

Ans
✗ 1. 20
✗ 2. 34
✓ 3. 24
✗ 4. 30

Question ID : **4410091498206**
Option 1 ID : **4410095917850**
Option 2 ID : **4410095917853**
Option 3 ID : **4410095917851**
Option 4 ID : **4410095917852**

QuickSarkari.com | WhatsApp Channel | Telegram: t.me/quick_sarkari

Q.14 If 42P456721Q is divisible by 88, find the values of P and Q, respectively.

Ans
✗ 1. 3,0
✗ 2. 2,7
✓ 3. 3,6
✗ 4. 6,1

Question ID : **4410091524917**
Option 1 ID : **4410096022867**
Option 2 ID : **4410096022870**
Option 3 ID : **4410096022868**
Option 4 ID : **4410096022869**

Q.15 Simplify the following expression and find the value of y.
$5^{4y-1}+25^{2y}=5^{(y-1)/2}+5^{(y+1)/2}$

Ans
✓ 1. $\frac{1}{7}$
✗ 2. $\frac{1}{3}$
✗ 3. $\frac{1}{5}$
✗ 4. $\frac{1}{6}$

Question ID : **4410091525205**
Option 1 ID : **4410096024013**
Option 2 ID : **4410096024011**
Option 3 ID : **4410096024012**
Option 4 ID : **4410096024010**

Q.16 Find the largest five-digit number which when divided by 5, 8 and 11 leaves a remainder of 4 in each case.

Ans
✓ 1. 99884
✗ 2. 99876
✗ 3. 99999
✗ 4. 99994

Question ID : **4410091525092**
Option 1 ID : **4410096023563**
Option 2 ID : **4410096023564**
Option 3 ID : **4410096023562**
Option 4 ID : **4410096023565**

QuickSarkari.com | WhatsApp Channel | Telegram: t.me/quick_sarkari

Q.17 Anand had ₹1,312 with him. He divided this amount between his sons, Anil and Ashok, and asked them to invest their respective shares at a rate of interest of 5% per annum, compounded annually. It was observed that Anil and Ashok received equal amounts after 18 years and 19 years, respectively. How much (in ₹) did Anand give to Ashok?

Ans
✗ 1. 772
✓ 2. 640
✗ 3. 672
✗ 4. 490

Question ID : **4410095736 37**
Option 1 ID : **4410092249671**
Option 2 ID : **4410092249668**
Option 3 ID : **4410092249669**
Option 4 ID : **4410092249670**

Q.18 How many integers between 12 and 40 are coprime to 27?

Ans
✓ 1. 18
✗ 2. 17
✗ 3. 15
✗ 4. 19

Question ID : **4410091556532**
Option 1 ID : **4410096148705**
Option 2 ID : **4410096148703**
Option 3 ID : **4410096148702**
Option 4 ID : **4410096148704**

Q.19 The ratio of two numbers is 3:5, and their LCM is 225. What is the difference between these numbers?

Ans
✓ 1. 30
✗ 2. 60
✗ 3. 36
✗ 4. 45

Question ID : **4410091556580**
Option 1 ID : **4410096148894**
Option 2 ID : **4410096148897**
Option 3 ID : **4410096148895**
Option 4 ID : **4410096148896**

QuickSarkari

Q.20 **The following two pie charts show the percentage distribution of the number of employees in a company across five departments in 2020 and 2021.**

What is the percentage increase in the number of employees in the operations department from 2020 to 2021?

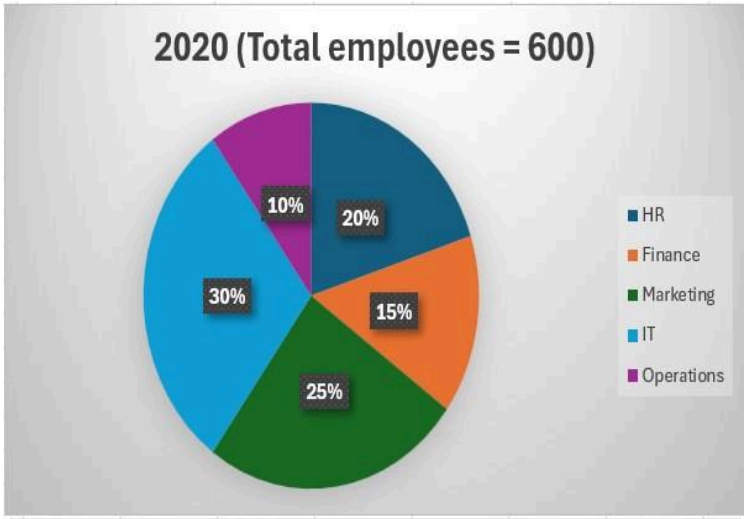

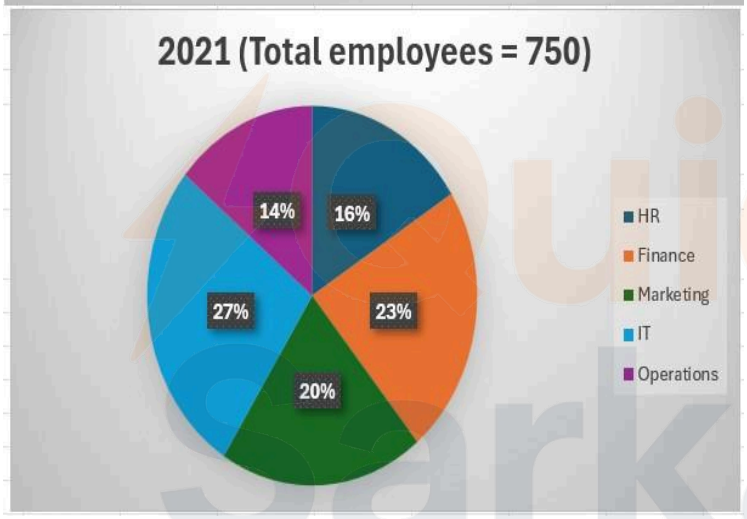

Ans

✗ 1. 68%

✗ 2. 55%

✓ 3. 75%

✗ 4. 72%

Question ID : **4410091494184**
Option 1 ID : **4410095902353**
Option 2 ID : **4410095902352**
Option 3 ID : **4410095902355**
Option 4 ID : **4410095902354**

Section : **Arithmetical and Numerical Ability1**

Q.1 Find the ratio of the third proportional of 60 and 180 and their mean proportional.

Ans
✗ 1. $6\sqrt{3}:5$
✓ 2. $3\sqrt{3}:1$
✗ 3. $4:5\sqrt{2}$
✗ 4. $1:2\sqrt{6}$

Question ID : **4410091529222**
Option 1 ID : **4410096039989**
Option 2 ID : **4410096039988**
Option 3 ID : **4410096039990**
Option 4 ID : **4410096039987**

Q.2 A boat goes 30 km downstream in the same time it takes to go 18 km upstream. If the speed of the stream is 3 km/h, find the speed of the boat in still water.

Ans
✗ 1. 14 km/h
✗ 2. 8 km/h
✗ 3. 10 km/h
✓ 4. 12 km/h

Question ID : **4410091513275**
Option 1 ID : **4410095977133**
Option 2 ID : **4410095977132**
Option 3 ID : **4410095977131**
Option 4 ID : **4410095977130**

Q.3 A solid sphere of radius 7 cm is melted and made into small spherical balls of radius 1 cm each. How many small balls will be formed?

Ans
✓ 1. 343
✗ 2. 49
✗ 3. 240
✗ 4. 147

Question ID : **4410091515902**
Option 1 ID : **4410095986976**
Option 2 ID : **4410095986975**
Option 3 ID : **4410095986973**
Option 4 ID : **4410095986974**

QuickSarkari

Q.4 **Two trains are traveling in opposite directions with speeds of 12 m/s and 9 m/s. If they take 11 seconds to completely cross each other, find the sum of their lengths.**

Ans
- ✗ 1. 241 meters
- ✗ 2. 220 meters
- ✓ 3. 231 meters
- ✗ 4. 242 meters

Question ID : **4410091566416**
Option 1 ID : **4410096187070**
Option 2 ID : **4410096187068**
Option 3 ID : **4410096187069**
Option 4 ID : **4410096187071**

Q.5 **The surface area of a cube with an edge length of 3 cm is:**

Ans
- ✗ 1. 64 cm2
- ✗ 2. 72 cm3
- ✓ 3. 54 cm2
- ✗ 4. 48 cm2

Question ID : **4410091515649**
Option 1 ID : **4410095985999**
Option 2 ID : **4410095985997**
Option 3 ID : **4410095985998**
Option 4 ID : **4410095986000**

Q.6 **A solid hemisphere of brass of radius 24 cm is cast into a right circular cone of height 192 cm. Find the radius of the base of the cone.**

Ans
- ✓ 1. 12 cm
- ✗ 2. 24 cm
- ✗ 3. 48 cm
- ✗ 4. 6 cm

Question ID : **4410091542472**
Option 1 ID : **4410096092992**
Option 2 ID : **4410096092994**
Option 3 ID : **4410096092991**
Option 4 ID : **4410096092993**

QuickSarkari.com | WhatsApp Channel | Telegram: t.me/quick_sarkari

Q.7 What is the total surface area of a cone whose height to slant height ratio is 3:5 and its curved surface area is $80\pi\ cm^2$?

Ans
✗ 1. $196\pi\ cm^2$
✗ 2. $168\pi\ cm^2$
✗ 3. $208\pi\ cm^2$
✓ 4. $144\pi\ cm^2$

Question ID : **4410091578173**
Option 1 ID : **4410096233762**
Option 2 ID : **4410096233760**
Option 3 ID : **4410096233763**
Option 4 ID : **4410096233761**

Q.8 A shopkeeper bought six identical mobile phones for a total sum of ₹36,000, and sold two of them for a total price of ₹24,000. Find the percentage of gain made by the shopkeeper in the sale of the two phones.

Ans
✗ 1. 103%
✗ 2. 97%
✓ 3. 100%
✗ 4. 99%

Question ID : **441009577782**
Option 1 ID : **4410092266256**
Option 2 ID : **4410092266255**
Option 3 ID : **4410092266254**
Option 4 ID : **4410092266257**

Q.9 A wholesaler supplies a product with a list price of ₹8,000. He offers a 15% trade discount to a retailer. Additionally, the wholesaler has a special festival scheme that offers a further 10% discount on the already discounted price. What is the final payable amount after both discounts?

Ans
✓ 1. ₹6,120
✗ 2. ₹6,480
✗ 3. ₹6,240
✗ 4. ₹6,000

Question ID : **4410091498401**
Option 1 ID : **4410095918624**
Option 2 ID : **4410095918626**
Option 3 ID : **4410095918625**
Option 4 ID : **4410095918623**

QuickSarkari.com | WhatsApp Channel | Telegram: t.me/quick_sarkari

Q.10 Initially, a school library had English and Hindi books in the ratio 7:5. The collection included 1680 English books. Later, after acquiring more English books, the ratio of English to Hindi books changed to 9:5. Determine how many new English books were added to the library.

Ans
✔ 1. 480
✘ 2. 400
✘ 3. 440
✘ 4. 500

Question ID : **4410091498436**
Option 1 ID : **4410095918755**
Option 2 ID : **4410095918753**
Option 3 ID : **4410095918754**
Option 4 ID : **4410095918756**

Q.11 The list price of a dining table is ₹50,000. It is sold to a retailer after two successive discounts of 14% and 30%. The retailer wants to earn a profit of 33% on his cost after allowing a 24% discount (on its new list price) to the customer. At what price should he list the dining table?

Ans
✔ 1. ₹52,675
✘ 2. ₹52,480
✘ 3. ₹52,683
✘ 4. ₹52,820

Question ID : **441009915760**
Option 1 ID : **4410093617291**
Option 2 ID : **4410093617294**
Option 3 ID : **4410093617293**
Option 4 ID : **4410093617292**

Q.12 The ratio of two numbers is 2 : 11. If the difference between them is 81, what is the smaller number?

Ans
✘ 1. 17
✔ 2. 18
✘ 3. 16
✘ 4. 15

Question ID : **4410091512984**
Option 1 ID : **4410095975968**
Option 2 ID : **4410095975966**
Option 3 ID : **4410095975967**
Option 4 ID : **4410095975969**

QuickSarkari.com | WhatsApp Channel | Telegram: t.me/quick_sarkari

Q.13 Two triangles ΔABC and ΔDEF have equal areas; if ΔABC has a base of 12 cm and height of 8 cm, and ΔDEF has a base of 16 cm, what is the height of ΔDEF?

Ans
✗ 1. 5 cm
✓ 2. 6 cm
✗ 3. 4.5 cm
✗ 4. 7 cm

Question ID : **4410091514731**
Option 1 ID : **4410095982356**
Option 2 ID : **4410095982357**
Option 3 ID : **4410095982359**
Option 4 ID : **4410095982358**

Q.14 Two taps can fill a cistern in 2 hours and 64 hours respectively. A third tap can empty it in 2 hours. How long (in hours) will it take to fill one-fourth of the empty cistern, if all of them are opened together?3976

Ans
✓ 1. 16
✗ 2. 32
✗ 3. 48
✗ 4. 64

Question ID : **441009897289**
Option 1 ID : **4410093543226**
Option 2 ID : **4410093543227**
Option 3 ID : **4410093543228**
Option 4 ID : **4410093543229**

Q.15 A book is sold for ₹550, resulting in a profit equal to 10% of its cost price. What was the cost price?

Ans
✗ 1. ₹490
✗ 2. ₹480
✓ 3. ₹500
✗ 4. ₹510

Question ID : **4410091498352**
Option 1 ID : **4410095918428**
Option 2 ID : **4410095918427**
Option 3 ID : **4410095918429**
Option 4 ID : **4410095918430**

Quick Sarkari

Q.16 A and B together can complete a job in 15 days. B alone can complete the same job in 20 days. In how many days can A alone complete the job?

Ans
✗ 1. 65 days
✗ 2. 55 days
✓ 3. 60 days
✗ 4. 50 days

Question ID : **4410091513034**
Option 1 ID : **4410095976169**
Option 2 ID : **4410095976168**
Option 3 ID : **4410095976167**
Option 4 ID : **4410095976166**

Q.17 Find the area of canvas required to build a conical tent of height 84 cm and floor area 3850 sq. cm.
$\left(\text{Take } \pi = \frac{22}{7}\right)$

Ans
✗ 1. 11.01 m2
✓ 2. 1.001 m2
✗ 3. 1001 m2
✗ 4. 10.11 m2

Question ID : **4410091540923**
Option 1 ID : **4410096086946**
Option 2 ID : **4410096086945**
Option 3 ID : **4410096086944**
Option 4 ID : **4410096086943**

Q.18 Divide ₹7,700 into three parts in such a way that half of the first part, one-fourth of the second part and one-eighth of the third part are equal. What is the value (in ₹) of the first part?

Ans
✗ 1. 1,200
✓ 2. 1,100
✗ 3. 1,400
✗ 4. 1,300

Question ID : **441009546009**
Option 1 ID : **4410092139435**
Option 2 ID : **4410092139432**
Option 3 ID : **4410092139433**
Option 4 ID : **4410092139434**

QuickSarkari

Q.19 A regular pentagon has an area of 300 cm^2, and each of its sides measures 12 cm. Find the length of its apothem.

Ans
✗ 1. 9 cm
✗ 2. 8 cm
✓ 3. 10 cm
✗ 4. 12 cm

Question ID : **4410091566418**
Option 1 ID : **4410096187077**
Option 2 ID : **4410096187076**
Option 3 ID : **4410096187078**
Option 4 ID : **4410096187079**

Q.20 A cuboid has a length of 10 cm, a breadth of 5 cm, and a height of 4 cm. What is its volume?

Ans
✗ 1. 800 cm3
✓ 2. 200 cm3
✗ 3. 220 cm3
✗ 4. 1000 cm3

Question ID : **4410091515614**
Option 1 ID : **4410095985861**
Option 2 ID : **4410095985859**
Option 3 ID : **4410095985860**
Option 4 ID : **4410095985862**

Section : **English Language and Comprehension**

Q.1 In the given question, a statement divided into different segments is given. The first segment (A) is fixed. Rearrange the other segments to form a coherent statement.

Travelling by train (A) / gives me a chance to watch (P) / along the way (Q) / the changing countryside (R) / and meet new people (S)

Ans
✓ 1. PRSQ
✗ 2. SQPR
✗ 3. SPQR
✗ 4. PQRS

Question ID : **4410091498164**
Option 1 ID : **4410095917691**
Option 2 ID : **4410095917693**
Option 3 ID : **4410095917692**
Option 4 ID : **4410095917690**

QuickSarkari

Q.2 In the given question, a statement divided into different segments is given. The first segment(A) is fixed. Rearrange the other segments to form a coherent statement.

Politics in the country(A) / service and truth (P) / of power and promises (Q) / has become a game (R) / rather than (S)

Ans
✔ 1. RQSP
✘ 2. RSPQ
✘ 3. PQRS
✘ 4. SQPR

Question ID : **4410091498142**
Option 1 ID : **4410095917608**
Option 2 ID : **4410095917607**
Option 3 ID : **4410095917606**
Option 4 ID : **4410095917609**

Q.3 Select the most appropriate option to complete the sentence.

We cannot start the class _____ the teacher arrives.

Ans
✘ 1. therefore
✘ 2. but
✔ 3. until
✘ 4. or

Question ID : **4410091508765**
Option 1 ID : **4410095959717**
Option 2 ID : **4410095959714**
Option 3 ID : **4410095959715**
Option 4 ID : **4410095959716**

Q.4 The following sentences, when arranged in a logical and coherent paragraph, describe a simple process. The first and last sentences of the paragraph are fixed. Choose the option that presents the correct sequence of the middle sentences (A, B, C, D, E) to form a meaningful paragraph.

First sentence: Making a perfect cup of tea is easy but precise.
(A) Pour boiling water over the tea leaves or tea bag.
(B) Remove the tea bag, add milk or sugar if you want, and enjoy.
(C) First, boil fresh cold water.
(D) While water heats, put tea in your cup or pot.
(E) Let the tea steep for 3–5 minutes.
Last sentence: This attention to detail makes tea comforting.

Ans
✘ 1. DCBEA
✔ 2. CDAEB
✘ 3. BADCE
✘ 4. ACEDB

Question ID : **4410091626741**
Option 1 ID : **4410096425325**
Option 2 ID : **4410096425324**
Option 3 ID : **4410096425327**
Option 4 ID : **4410096425326**

Q.5 The parts labeled (OPQRST) form a single sentence when rearranged correctly. Choose the correct sequence to make a meaningful sentence.

O: a policy widely debated for its economic impact,
P: the government's decision to subsidize renewable energy,
Q: ultimately led to
R: a significant reduction in carbon emissions
S: despite initial skepticism from industrial sectors,
T: within just five years.

Ans
✗ 1. OPSQRT
✗ 2. STQORP
✓ 3. POSQRT
✗ 4. PSOQTR

Question ID : **4410091626952**
Option 1 ID : **4410096426126**
Option 2 ID : **4410096426129**
Option 3 ID : **4410096426128**
Option 4 ID : **4410096426127**

Q.6 Choose the option that best replaces the underlined text.

The accused was released from prison because he was formally cleared of all criminal charges.

Ans
✗ 1. detained
✗ 2. convicted
✓ 3. acquitted
✗ 4. arrested

Question ID : **4410091506609**
Option 1 ID : **4410095950793**
Option 2 ID : **4410095950791**
Option 3 ID : **4410095950792**
Option 4 ID : **4410095950794**

Q.7 Select the most appropriate option to complete the sentence.

The students waited _____ the school gate for the bus.

Ans
✗ 1. through
✗ 2. under
✗ 3. in
✓ 4. at

Question ID : **4410091508654**
Option 1 ID : **4410095959254**
Option 2 ID : **4410095959252**
Option 3 ID : **4410095959255**
Option 4 ID : **4410095959253**

QuickSarkari.com | WhatsApp Channel | Telegram: t.me/quick_sarkari

Q.8 Select a specific word from the options below to replace the underlined group of words in the following sentence.
Her habit of describing her own life and experiences in a way that is meant to make people feel sorry for her was tiresome to her friends.

Ans
✔ 1. Victimhood
✘ 2. Narcissism
✘ 3. Melodrama
✘ 4. Hypochondria

Question ID : **4410091627077**
Option 1 ID : **4410096426617**
Option 2 ID : **4410096426614**
Option 3 ID : **4410096426615**
Option 4 ID : **4410096426616**

Q.9 Select a specific word from the options below to replace the underlined group of words in the following sentence.

After the earthquake, the city was in a state of complete disorder and confusion.

Ans
✘ 1. Pandemonium
✔ 2. Chaos
✘ 3. Havoc
✘ 4. Anarchy

Question ID : **4410091627043**
Option 1 ID : **4410096426481**
Option 2 ID : **4410096426480**
Option 3 ID : **4410096426478**
Option 4 ID : **4410096426479**

Q.10 Choose the most suitable option to complete the sentence meaningfully.

Every morning, my neighbor ____ his dog for a walk in the park.

Ans
✔ 1. takes
✘ 2. take
✘ 3. is taking
✘ 4. taken

Question ID : **4410091627174**
Option 1 ID : **4410096427003**
Option 2 ID : **4410096427002**
Option 3 ID : **4410096427004**
Option 4 ID : **4410096427005**

QuickSarkari.com | WhatsApp Channel | Telegram: t.me/quick_sarkari

Q.11 Choose the most suitable option to complete the sentence meaningfully.

The presentation will start exactly ____ 3:00 PM, so please be seated by then.

Ans
✗ 1. by
✗ 2. on
✓ 3. at
✗ 4. in

Question ID : **4410091627166**
Option 1 ID : **4410096426973**
Option 2 ID : **4410096426970**
Option 3 ID : **4410096426971**
Option 4 ID : **4410096426972**

Q.12 Fill in the blank with the most appropriate option.
The rescue team _____ through the dense forest to search for the missing hikers.

Ans
✗ 1. commuted
✗ 2. sauntered
✗ 3. loitered
✓ 4. traversed

Question ID : **4410091506851**
Option 1 ID : **4410095951776**
Option 2 ID : **4410095951775**
Option 3 ID : **4410095951777**
Option 4 ID : **4410095951774**

Q.13 The question below consists of a set of labeled phrases. Out of the four options given, select the most logical order to form a coherent sentence.

P: the earth and rivers vanish into caves, nature reveals
Q: deep in the forests of Meghalaya, where clouds kiss
R: her most secret artistry—alive, mysterious, and forever
S: beyond the full grasp of human understanding

Ans
✗ 1. RPSQ
✓ 2. QPRS
✗ 3. PSQR
✗ 4. SQRP

Question ID : **4410091506743**
Option 1 ID : **4410095951321**
Option 2 ID : **4410095951318**
Option 3 ID : **4410095951320**
Option 4 ID : **4410095951319**

QuickSarkari.com | WhatsApp Channel | Telegram: t.me/quick_sarkari

Q.14 **Select the most appropriate option that can substitute the underlined segment in the given sentence.**

He was rewarded for his <u>honesty and truthfulness</u> in reporting the lost wallet.

Ans

✗ 1. obedience

✓ 2. integrity

✗ 3. diplomacy

✗ 4. deceit

Question ID : **4410091490204**
Option 1 ID : **4410095886828**
Option 2 ID : **4410095886826**
Option 3 ID : **4410095886827**
Option 4 ID : **4410095886825**

Q.15 **Convert the following sentence from Active to Passive Voice.**
The volunteers cleaned the park last weekend.

Ans

✗ 1. The park will be cleaned by the volunteers last weekend.

✗ 2. The park has been cleaned by the volunteers last weekend.

✗ 3. The park is cleaned by the volunteers last weekend.

✓ 4. The park was cleaned by the volunteers last weekend.

Question ID : **4410091506876**
Option 1 ID : **4410095951877**
Option 2 ID : **4410095951874**
Option 3 ID : **4410095951875**
Option 4 ID : **4410095951876**

Q.16 **Select the most appropriate option that can substitute the underlined segment in the given sentence.**

The custom of <u>marrying within one's own social group or caste</u> still exists in some parts of society.

Ans

✗ 1. monogamy

✓ 2. endogamy

✗ 3. celibacy

✗ 4. polygamy

Question ID : **4410091490282**
Option 1 ID : **4410095887135**
Option 2 ID : **4410095887134**
Option 3 ID : **4410095887136**
Option 4 ID : **4410095887133**

QuickSarkari.com | WhatsApp Channel | Telegram: t.me/quick_sarkari

Q.17 Fill in the blank with the most appropriate option.
The team celebrated their victory _____ they had worked hard to earn it.

Ans
✗ 1. yet
✗ 2. while
✓ 3. as
✗ 4. whereas

Question ID : **4410091506822**
Option 1 ID : **4410095951646**
Option 2 ID : **4410095951649**
Option 3 ID : **4410095951648**
Option 4 ID : **4410095951647**

Q.18 Select the most appropriate option that can substitute the underlined segment in the given sentence.

The building where books are kept for reading or borrowing was renovated recently.

Ans
✗ 1. museum
✗ 2. laboratory
✓ 3. library
✗ 4. gallery

Question ID : **4410091490126**
Option 1 ID : **4410095886517**
Option 2 ID : **4410095886518**
Option 3 ID : **4410095886519**
Option 4 ID : **4410095886520**

Q.19 Select the most appropriate option that can substitute the underlined segment in the given sentence.

Her wise and careful handling of the situation impressed everyone at the meeting.

Ans
✗ 1. equanimous
✗ 2. congenial
✗ 3. altruistic
✓ 4. judicious

Question ID : **4410091490143**
Option 1 ID : **4410095886587**
Option 2 ID : **4410095886586**
Option 3 ID : **4410095886588**
Option 4 ID : **4410095886585**

QuickSarkari.com | WhatsApp Channel | Telegram: t.me/quick_sarkari

Q.20 In the given question, a statement divided into different segments is given. Rearrange all the segments to form a coherent statement.

A new element (P) / That glowed brightly (Q) / The scientist discovered (R) / When mixed with water (S)

Ans
✔ 1. RPQS
✘ 2. PQSR
✘ 3. PSRQ
✘ 4. RQSP

Question ID : **4410091500313**
Option 1 ID : **4410095926117**
Option 2 ID : **4410095926115**
Option 3 ID : **4410095926114**
Option 4 ID : **4410095926116**

Section : **English Language and Comprehension1**

Q.1 Identify the correctly spelled word to complete the sentence.

The scientist's _____ were recognized internationally.

Ans
✘ 1. acheivments
✔ 2. achievements
✘ 3. acheivements
✘ 4. achievments

Question ID : **441009947947**
Option 1 ID : **4410093745284**
Option 2 ID : **4410093745283**
Option 3 ID : **4410093745281**
Option 4 ID : **4410093745282**

Q.2 Read the given sentence carefully and select the option that converts it into passive voice.

I will help them solve the problem during the meeting.

Ans
✘ 1. They will helped by me to solve the problem.
✘ 2. They were helped by me to solve the problem.
✔ 3. They will be helped by me to solve the problem.
✘ 4. They are helped by me to solve the problem.

Question ID : **4410091631357**
Option 1 ID : **4410096443655**
Option 2 ID : **4410096443654**
Option 3 ID : **4410096443652**
Option 4 ID : **4410096443653**

QuickSarkari.com | WhatsApp Channel | Telegram: t.me/quick_sarkari

Q.3 **Select the most appropriate passive voice of the sentence given below.**

Savita has prepared dinner.

Ans
✔ 1. Dinner has been prepared by Savita.

✘ 2. Dinner is being prepared by Savita.

✘ 3. Dinner had been prepared by Savita.

✘ 4. Dinner have been prepared by Savita.

Question ID : **441009478669**
Option 1 ID : **4410091870026**
Option 2 ID : **4410091870027**
Option 3 ID : **4410091870025**
Option 4 ID : **4410091870028**

Q.4 **Select the option that expresses the given sentence in passive voice.**

They are painting the house.

Ans
✘ 1. The house has been painted by them.

✔ 2. The house is being painted by them.

✘ 3. The house is painted by them.

✘ 4. The house was being painted by them.

Question ID : **441009481704**
Option 1 ID : **4410091882166**
Option 2 ID : **4410091882165**
Option 3 ID : **4410091882167**
Option 4 ID : **4410091882168**

Q.5 **Choose the option which completes the given sentence correctly in direct speech.**
Direct Speech: Rita said, _____.
Indirect Speech: Rita said that she would visit her grandmother the next day.

Ans
✘ 1. “I am visiting my grandmother the next day.”

✘ 2. “I would visited my grandmother tomorrow.”

✔ 3. “I will visit my grandmother tomorrow.”

✘ 4. “I visit my grandmother tomorrow.”

Question ID : **4410091506904**
Option 1 ID : **4410095951993**
Option 2 ID : **4410095951991**
Option 3 ID : **4410095951990**
Option 4 ID : **4410095951992**

QuickSarkari.com | WhatsApp Channel | Telegram: t.me/quick_sarkari

Q.6 **Read the following sentence and identify the wrongly spelt word.**
After the heavy storm, the couragous residents started to rebuild their damaged houses with remarkable speed and great determination.

Ans
✗ 1. remarkable
✗ 2. determination
✗ 3. damaged
✓ 4. couragous

Question ID : **4410091621351**
Option 1 ID : **4410096404211**
Option 2 ID : **4410096404212**
Option 3 ID : **4410096404210**
Option 4 ID : **4410096404209**

Q.7 **Select the most appropriate option that rectifies the underlined incorrectly spelt word in the given sentence.**

His careless remarks during the meeting could jeoperdise the entire project.

Ans
✓ 1. jeopardise
✗ 2. jeopardizee
✗ 3. jieopardize
✗ 4. geoperdize

Question ID : **441009198990**
Option 1 ID : **441009783262**
Option 2 ID : **441009783265**
Option 3 ID : **441009783264**
Option 4 ID : **441009783263**

Q.8 **Choose the correct spelling of the highlighted word from the options provided.**

The lieutanant gave a peculiar order to the battalion.

Ans
✗ 1. lieutenent
✓ 2. lieutenant
✗ 3. lieuttenant
✗ 4. lieuttenent

Question ID : **4410091038828**
Option 1 ID : **4410094105428**
Option 2 ID : **4410094105429**
Option 3 ID : **4410094105427**
Option 4 ID : **4410094105426**

QuickSarkari.com | WhatsApp Channel | Telegram: t.me/quick_sarkari

Q.9 **Choose the correct active voice form of the given sentence.**

The novel was being discussed by the literature circle when the guest speaker arrived.

Ans
✗ 1. The literature circle were discussing the novel when the guest speaker arrived.

✓ 2. The literature circle was discussing the novel when the guest speaker arrived.

✗ 3. The literature circle had discussed the novel when the guest speaker arrived.

✗ 4. The literature circle discussed the novel when the guest speaker arrived.

Question ID : **441009478677**
Option 1 ID : **4410091870058**
Option 2 ID : **4410091870059**
Option 3 ID : **4410091870057**
Option 4 ID : **4410091870060**

Q.10 **Select the most appropriate option that rectifies the underlined incorrectly spelt word in the given sentence.**

His actions were slow and diliberate, showing he had carefully thought through every step.

Ans
✗ 1. dileberate

✗ 2. deleberate

✗ 3. dilibirate

✓ 4. deliberate

Question ID : **441009199015**
Option 1 ID : **441009783362**
Option 2 ID : **441009783365**
Option 3 ID : **441009783364**
Option 4 ID : **441009783363**

QuickSarkari

Comprehension:

Read the following passage and answer the questions given below.

Born in a small coastal town, Meera had always been fascinated by the sea. Her father, a fisherman, often warned her of its unpredictable moods, but she saw only its endless beauty and mystery. When a severe storm destroyed most of the village boats, many families lost their livelihood. Instead of despairing, Meera decided to learn marine engineering to help rebuild stronger, safer vessels. With the help of scholarships and long nights of study, she graduated from a top institute and returned home to design storm-resistant boats. Her innovation not only revived her village's fishing industry but also drew the attention of coastal communities across the country. Through seminars and training programs, she shared her designs widely, promoting eco-friendly methods and sustainable technologies. Meera's journey from a fisherman's daughter to a pioneer in sustainable marine technology inspired many young girls to believe that determination, education, and compassion could turn even the fiercest tides in one's favor.

SubQuestion No : 11

Q.11 What best describes the theme of the passage?

Ans

✗ 1. The importance of family traditions

✗ 2. The struggle between humans and the sea

✓ 3. The strength of education and perseverance

✗ 4. The power of nature's unpredictability

Question ID : **4410091506963**
Option 1 ID : **4410095952243**
Option 2 ID : **4410095952245**
Option 3 ID : **4410095952244**
Option 4 ID : **4410095952242**

Comprehension:

Read the following passage and answer the questions given below.

Born in a small coastal town, Meera had always been fascinated by the sea. Her father, a fisherman, often warned her of its unpredictable moods, but she saw only its endless beauty and mystery. When a severe storm destroyed most of the village boats, many families lost their livelihood. Instead of despairing, Meera decided to learn marine engineering to help rebuild stronger, safer vessels. With the help of scholarships and long nights of study, she graduated from a top institute and returned home to design storm-resistant boats. Her innovation not only revived her village's fishing industry but also drew the attention of coastal communities across the country. Through seminars and training programs, she shared her designs widely, promoting eco-friendly methods and sustainable technologies. Meera's journey from a fisherman's daughter to a pioneer in sustainable marine technology inspired many young girls to believe that determination, education, and compassion could turn even the fiercest tides in one's favor.

SubQuestion No : 12

Q.12 How does this story connect to the real world?

Ans

✗ 1. It warns against modern technology.

✗ 2. It highlights the need for global cooperation.

✓ 3. It reflects real struggles of coastal communities.

✗ 4. It discusses tourism and economic growth.

Question ID : **4410091506960**
Option 1 ID : **4410095952233**
Option 2 ID : **4410095952230**
Option 3 ID : **4410095952231**
Option 4 ID : **4410095952232**

Comprehension:

Read the following passage and answer the questions given below.

Born in a small coastal town, Meera had always been fascinated by the sea. Her father, a fisherman, often warned her of its unpredictable moods, but she saw only its endless beauty and mystery. When a severe storm destroyed most of the village boats, many families lost their livelihood. Instead of despairing, Meera decided to learn marine engineering to help rebuild stronger, safer vessels. With the help of scholarships and long nights of study, she graduated from a top institute and returned home to design storm-resistant boats. Her innovation not only revived her village's fishing industry but also drew the attention of coastal communities across the country. Through seminars and training programs, she shared her designs widely, promoting eco-friendly methods and sustainable technologies. Meera's journey from a fisherman's daughter to a pioneer in sustainable marine technology inspired many young girls to believe that determination, education, and compassion could turn even the fiercest tides in one's favor.

SubQuestion No : 13

Q.13 What can be inferred about Meera's character?

Ans

✗ 1. She relied on others for success.

✓ 2. She was ambitious and resilient.

✗ 3. She was fearful but obedient.

✗ 4. She disliked her hometown.

Question ID : **4410091506961**
Option 1 ID : **4410095952236**
Option 2 ID : **4410095952235**
Option 3 ID : **4410095952234**
Option 4 ID : **4410095952237**

Comprehension:

Read the following passage and answer the questions given below.

Born in a small coastal town, Meera had always been fascinated by the sea. Her father, a fisherman, often warned her of its unpredictable moods, but she saw only its endless beauty and mystery. When a severe storm destroyed most of the village boats, many families lost their livelihood. Instead of despairing, Meera decided to learn marine engineering to help rebuild stronger, safer vessels. With the help of scholarships and long nights of study, she graduated from a top institute and returned home to design storm-resistant boats. Her innovation not only revived her village's fishing industry but also drew the attention of coastal communities across the country. Through seminars and training programs, she shared her designs widely, promoting eco-friendly methods and sustainable technologies. Meera's journey from a fisherman's daughter to a pioneer in sustainable marine technology inspired many young girls to believe that determination, education, and compassion could turn even the fiercest tides in one's favor.

SubQuestion No : 14

Q.14 Which title suits the passage best?

Ans

✗ 1. Rising with the Waves

✗ 2. The Storm that Broke Dreams

✗ 3. Lessons from the Coastline

✓ 4. Between Nets and Knowledge

Question ID : **4410091506962**
Option 1 ID : **4410095952238**
Option 2 ID : **4410095952239**
Option 3 ID : **4410095952240**
Option 4 ID : **4410095952241**

Comprehension:

Read the following passage and answer the questions given below.

Born in a small coastal town, Meera had always been fascinated by the sea. Her father, a fisherman, often warned her of its unpredictable moods, but she saw only its endless beauty and mystery. When a severe storm destroyed most of the village boats, many families lost their livelihood. Instead of despairing, Meera decided to learn marine engineering to help rebuild stronger, safer vessels. With the help of scholarships and long nights of study, she graduated from a top institute and returned home to design storm-resistant boats. Her innovation not only revived her village's fishing industry but also drew the attention of coastal communities across the country. Through seminars and training programs, she shared her designs widely, promoting eco-friendly methods and sustainable technologies. Meera's journey from a fisherman's daughter to a pioneer in sustainable marine technology inspired many young girls to believe that determination, education, and compassion could turn even the fiercest tides in one's favor.

SubQuestion No : 15

Q.15 Which structural feature stands out in the passage?

Ans

✗ 1. Description of multiple locations

✗ 2. Use of dialogue between characters

✗ 3. Comparison between two professions

✓ 4. Chronological narration of life events

Question ID : **4410091506959**
Option 1 ID : **4410095952228**
Option 2 ID : **4410095952227**
Option 3 ID : **4410095952229**
Option 4 ID : **4410095952226**

Comprehension:

Read the given passage and answer the questions that follow.

In the deep jungle, Mowgli grew up among the animals and learned their ways. He listened to the river as if it spoke, and understood the silence of the stones. The wolves taught him how to live and hunt together as a pack, to read the wind for danger, and to follow the laws that kept the jungle in balance. Each creature had its own nature — the panther moved quietly like a shadow, the bear was slow and strong, and the jackal was clever but untrustworthy. Living between the human and animal worlds, Mowgli learned many lessons. He realized that courage without wisdom could be dangerous, and that cleverness without friendship was lonely. Sometimes, as he sat by the fire left by humans, he wondered if people were as wise as the animals. In the jungle, he learned that true knowledge comes slowly, through patience and careful listening.

SubQuestion No : 16

Q.16 Which title best reflects the message of the passage?

Ans

✗ 1. The Strength of the Pack

✗ 2. The Fire of Humanity

✓ 3. Lessons from the Wild

✗ 4. The Shadow Panther

Question ID : **4410091489463**
Option 1 ID : **4410095883897**
Option 2 ID : **4410095883898**
Option 3 ID : **4410095883900**
Option 4 ID : **4410095883899**

Comprehension:

Read the given passage and answer the questions that follow.

In the deep jungle, Mowgli grew up among the animals and learned their ways. He listened to the river as if it spoke, and understood the silence of the stones. The wolves taught him how to live and hunt together as a pack, to read the wind for danger, and to follow the laws that kept the jungle in balance. Each creature had its own nature — the panther moved quietly like a shadow, the bear was slow and strong, and the jackal was clever but untrustworthy. Living between the human and animal worlds, Mowgli learned many lessons. He realized that courage without wisdom could be dangerous, and that cleverness without friendship was lonely. Sometimes, as he sat by the fire left by humans, he wondered if people were as wise as the animals. In the jungle, he learned that true knowledge comes slowly, through patience and careful listening.

SubQuestion No : 17

Q.17 What does the description of animals suggest about Mowgli's understanding of the jungle?

Ans

✗ 1. He thought animals were foolish.

✓ 2. He saw each creature as a teacher with its own wisdom.

✗ 3. He wanted to rule over the animals.

✗ 4. He feared the animals deeply.

Question ID : **4410091489465**
Option 1 ID : **4410095883908**
Option 2 ID : **4410095883906**
Option 3 ID : **4410095883907**
Option 4 ID : **4410095883905**

Comprehension:

Read the given passage and answer the questions that follow.

In the deep jungle, Mowgli grew up among the animals and learned their ways. He listened to the river as if it spoke, and understood the silence of the stones. The wolves taught him how to live and hunt together as a pack, to read the wind for danger, and to follow the laws that kept the jungle in balance. Each creature had its own nature — the panther moved quietly like a shadow, the bear was slow and strong, and the jackal was clever but untrustworthy. Living between the human and animal worlds, Mowgli learned many lessons. He realized that courage without wisdom could be dangerous, and that cleverness without friendship was lonely. Sometimes, as he sat by the fire left by humans, he wondered if people were as wise as the animals. In the jungle, he learned that true knowledge comes slowly, through patience and careful listening.

SubQuestion No : 18

Q.18 What can we infer about Mowgli's feelings toward humans?

Ans

✗ 1. He disliked them entirely.

✗ 2. He wanted to become fully human.

✓ 3. He was curious but uncertain about them.

✗ 4. He believed they were superior.

Question ID : **4410091489464**
Option 1 ID : **4410095883902**
Option 2 ID : **4410095883904**
Option 3 ID : **4410095883903**
Option 4 ID : **4410095883901**

Comprehension:

Read the given passage and answer the questions that follow.

In the deep jungle, Mowgli grew up among the animals and learned their ways. He listened to the river as if it spoke, and understood the silence of the stones. The wolves taught him how to live and hunt together as a pack, to read the wind for danger, and to follow the laws that kept the jungle in balance. Each creature had its own nature — the panther moved quietly like a shadow, the bear was slow and strong, and the jackal was clever but untrustworthy. Living between the human and animal worlds, Mowgli learned many lessons. He realized that courage without wisdom could be dangerous, and that cleverness without friendship was lonely. Sometimes, as he sat by the fire left by humans, he wondered if people were as wise as the animals. In the jungle, he learned that true knowledge comes slowly, through patience and careful listening.

SubQuestion No : 19

Q.19 Choose the word closest in meaning to "untrustworthy" as used in the passage.

Ans

✗ 1. Loyal

✗ 2. Rude

✓ 3. Unreliable

✗ 4. Clever

Question ID : **4410091489462**
Option 1 ID : **4410095883893**
Option 2 ID : **4410095883896**
Option 3 ID : **4410095883895**
Option 4 ID : **4410095883894**

Comprehension:

Read the given passage and answer the questions that follow.

In the deep jungle, Mowgli grew up among the animals and learned their ways. He listened to the river as if it spoke, and understood the silence of the stones. The wolves taught him how to live and hunt together as a pack, to read the wind for danger, and to follow the laws that kept the jungle in balance. Each creature had its own nature — the panther moved quietly like a shadow, the bear was slow and strong, and the jackal was clever but untrustworthy. Living between the human and animal worlds, Mowgli learned many lessons. He realized that courage without wisdom could be dangerous, and that cleverness without friendship was lonely. Sometimes, as he sat by the fire left by humans, he wondered if people were as wise as the animals. In the jungle, he learned that true knowledge comes slowly, through patience and careful listening.

SubQuestion No : 20

Q.20 Which statement best summarizes the passage?

Ans

✗ 1. Mowgli misses human society and wishes to return to it.

✓ 2. The jungle teaches Mowgli wisdom and patience through observation.

✗ 3. Mowgli learns to survive by defeating dangerous animals.

✗ 4. The animals refuse to accept Mowgli as one of their own.

Question ID : **4410091489466**
Option 1 ID : **4410095883911**
Option 2 ID : **4410095883910**
Option 3 ID : **4410095883909**
Option 4 ID : **4410095883912**

Section : **Hindi Language and Comprehension**

Q.1 सर्वोचित क्रिया शब्द से दिए गये वाक्य का रिक्त स्थान पूर्ण करें–

वह तेज़ हवा में पतंग _____ के लिए छत पर गया था।

Ans
✗ 1. लहराने
✗ 2. फहराने
✓ 3. उड़ाने
✗ 4. लड़ाने

Question ID : **4410091373801**
Option 1 ID : **4410095426634**
Option 2 ID : **4410095426635**
Option 3 ID : **4410095426637**
Option 4 ID : **4410095426636**

Q.2 निम्नलिखित में से एक लोकोक्ति-युग्म सुमेलित नहीं है-

Ans
✗ 1. अभी दिल्ली दूर है-अभी तो बहुत प्रयास करना है।
✗ 2. आधा तीतर,आधा बटेर-बेजोड़ चीज;बेतुकी बात।
✓ 3. आप भला तो जग भला –अत्यधिक खुश होना।
✗ 4. अरहर की टट्टी,गुजराती ताला-एक बेमेल काम।

Question ID : **441009236847**
Option 1 ID : **441009925815**
Option 2 ID : **441009925818**
Option 3 ID : **441009925817**
Option 4 ID : **441009925816**

Q.3 निम्नलिखित वाक्य के रिक्त स्थान में उचित क्रिया की पूर्ति कीजिए -
' आशीष _____रहा है।'

Ans
✗ 1. जाते
✗ 2. पढ़ी
✓ 3. लिख
✗ 4. आते

Question ID : **441009368585**
Option 1 ID : **4410091440316**
Option 2 ID : **4410091440313**
Option 3 ID : **4410091440315**
Option 4 ID : **4410091440314**

QuickSarkari.com | WhatsApp Channel | Telegram: t.me/quick_sarkari

Q.4 सर्वोचित क्रिया शब्द से दिए गये वाक्य का रिक्त स्थान पूर्ण करें–

बच्चे खुशी से मैदान में गेंद के साथ _____।

Ans
✗ 1. बतिया रहे थे
✗ 2. दौड़ लगा रहे थे
✓ 3. खेल रहे थे
✗ 4. पढ़ रहे थे

Question ID : **4410091373797**
Option 1 ID : **4410095426621**
Option 2 ID : **4410095426619**
Option 3 ID : **4410095426620**
Option 4 ID : **4410095426618**

Q.5 निम्नलिखित वाक्यांश एक वाक्य का अभिन्न अंग हैं ,जो यहाँ क्रम में नहीं दिए गए हैं। इनको क्रम में लगाइए
1.इस संकट से बचने का सबसे अच्छा उपाय है
2.पास के दूसरे सरोवर में चले जाएँ
3.कि सवेरा होने से पहले हम सब यह सरोवर छोड़कर
4.अनागतविधाता ने कहा कि

Ans
✗ 1. 4,3,2,1
✗ 2. 1,2,3,4
✗ 3. 1,3,4,2
✓ 4. 4,1,3,2

Question ID : **4410091509295**
Option 1 ID : **4410095961843**
Option 2 ID : **4410095961841**
Option 3 ID : **4410095961842**
Option 4 ID : **4410095961840**

Q.6 'पैर से लेकर सिर तक' वाक्यांश के लिए उचित शब्द क्या होगा?

Ans
✗ 1. आमाशय
✗ 2. आश्वस्त
✗ 3. उत्क्षिप्त
✓ 4. आपादमस्तक

Question ID : **4410091594088**
Option 1 ID : **4410096296595**
Option 2 ID : **4410096296594**
Option 3 ID : **4410096296597**
Option 4 ID : **4410096296596**

Quick Sarkari

Q.7 निम्नलिखित में से कौन सी एक लोकोक्ति और उसका अर्थ युग्म अशुद्ध है?

Ans
✗ 1. भागे भूत की लँगोटी ही सही- कुछ ना पाने से निराश को कुछ ही मिल जाना
✗ 2. अंत भला तो सब भला-कर्म का फल अच्छा हो तो सब ठीक है
✗ 3. थोथा चना बाजे घना- कम गुण वाले अधिक बढ़-चढ़कर बोलते हैं
✓ 4. बिल्ली के भागों छीका टूटा- सबका मनमाने ढंग से चलना

Question ID : **4410091267473**
Option 1 ID : **4410095002597**
Option 2 ID : **4410095002598**
Option 3 ID : **4410095002596**
Option 4 ID : **4410095002599**

Q.8 'उत्तम मध्यम कहना' मुहावरे का सही अर्थ होगा -

Ans
✓ 1. भला बुरा कहना
✗ 2. गूढ़ रहस्य जान जाना
✗ 3. पेट पालना
✗ 4. उलट -पुलट देना

Question ID : **441009397616**
Option 1 ID : **4410091555903**
Option 2 ID : **4410091555902**
Option 3 ID : **4410091555905**
Option 4 ID : **4410091555904**

Q.9 'अग्नि से संबंधित' वाक्यांश के लिए एक सार्थक शब्द क्या होगा?

Ans
✗ 1. आग्रहायण
✗ 2. आगार
✓ 3. आग्नेय
✗ 4. आगमिक

Question ID : **441009476946**
Option 1 ID : **4410091863198**
Option 2 ID : **4410091863199**
Option 3 ID : **4410091863200**
Option 4 ID : **4410091863197**

Q.10 निम्नलिखित वाक्यांश के लिए सार्थक शब्द लिखें।
जिसका आदर न किया गया हो___5239

Ans
✗ 1. अवज्ञा
✗ 2. पूज्य
✓ 3. अनादृत
✗ 4. आदरणीय

Question ID : **441009476994**
Option 1 ID : **4410091863392**
Option 2 ID : **4410091863391**
Option 3 ID : **4410091863389**
Option 4 ID : **4410091863390**

QuickSarkari.com | WhatsApp Channel | Telegram: t.me/quick_sarkari

Q.11 'जो दिखाई न देता हो' वाक्यांश के लिए सार्थक शब्द का विकल्पों में से चयन कीजिए।

Ans
✗ 1. अनंत
✗ 2. दूरदर्शी
✓ 3. अदृश्य
✗ 4. अनुपम

Question ID : **441009681290**
Option 1 ID : **4410092679144**
Option 2 ID : **4410092679143**
Option 3 ID : **4410092679142**
Option 4 ID : **4410092679145**

Q.12 जब मैं पुस्तकालय पहुँचा, तब छात्र वहाँ ___ थे। रिक्त स्थान की पूर्ति उचित क्रिया से करें।

Ans
✗ 1. पढ़े
✓ 2. पढ़ रहे
✗ 3. पढ़ते होंगे
✗ 4. पढ़

Question ID : **441009653686**
Option 1 ID : **4410092569026**
Option 2 ID : **4410092569025**
Option 3 ID : **4410092569023**
Option 4 ID : **4410092569024**

Q.13 'आटे के साथ घुन भी पिसता है' लोकोक्ति का सही अर्थ होगा -

Ans
✗ 1. रूठने से अपना ही नुक्सान होता है
✓ 2. दोषी व्यक्ति के साथ निर्दोष भी मारा जाता है
✗ 3. छोटा बड़े को उपदेश देता है
✗ 4. दोहरा लाभ

Question ID : **441009397767**
Option 1 ID : **4410091556511**
Option 2 ID : **4410091556513**
Option 3 ID : **4410091556512**
Option 4 ID : **4410091556510**

Q.14 निम्नलिखित मुहावरे का सही अर्थ चुनिए–
'खून पानी हो जाना'

Ans
✓ 1. बहुत अधिक कष्ट होना
✗ 2. मेहनत का फल मिलना
✗ 3. किसी से ईर्ष्या करना
✗ 4. बहुत अधिक प्रसन्न होना

Question ID : **4410091488907**
Option 1 ID : **4410095881802**
Option 2 ID : **4410095881805**
Option 3 ID : **4410095881804**
Option 4 ID : **4410095881803**

Q.15 निम्न में से कौन-सी लोकोक्ति अपने अर्थ से सुमेलित है?

Ans
✗ 1. जिसकी लाठी उसकी भैंस -- भैंस लाठी से मानती है
✓ 2. जिस पत्तल में खाना उसी में छेद करना -- कृतघ्न होना
✗ 3. छठी का दूध याद करना -- बुरा हाल होना
✗ 4. जान है तो जहान है -- ज़िंदा रहने पर सबकुछ अच्छा लगता है

Question ID : **441009401747**
Option 1 ID : **4410091572404**
Option 2 ID : **4410091572406**
Option 3 ID : **4410091572407**
Option 4 ID : **4410091572405**

Q.16 नीचे दिए वाक्य में रिक्त-स्थान की पूर्ति के लिए दिए गए विकल्पों में से सार्वनामिक विशेषण चुनें-
मैंने _____लड़कों से पूछा।

Ans
✗ 1. बड़े
✗ 2. तीन
✓ 3. उन
✗ 4. कुछ

Question ID : **441009402001**
Option 1 ID : **4410091573405**
Option 2 ID : **4410091573403**
Option 3 ID : **4410091573404**
Option 4 ID : **4410091573402**

Q.17 भारतीय स्वतंत्रता संग्राम ___ कई महापुरुषों ने अपने प्राणों की आहुति दी। रिक्त स्थान की पूर्ति उचित कारक से करें।

Ans
✗ 1. से
✗ 2. द्वारा
✗ 3. को
✓ 4. में

Question ID : **441009653420**
Option 1 ID : **4410092567965**
Option 2 ID : **4410092567963**
Option 3 ID : **4410092567964**
Option 4 ID : **4410092567966**

Quick Sarkari

Q.18 निम्नलिखित शब्दों को सही क्रम में लगाकर वाक्य बनाइये
कर्तव्य / समाज / का / पालन /मूल / आधार / है

Ans
✔ 1. समाज का मूल आधार कर्तव्य पालन है ।
✘ 2. समाज मूल आधार कर्तव्य का पालन है ।
✘ 3. मूल आधार कर्तव्य समाज का पालन है ।
✘ 4. समाज का आधार मूल कर्तव्य पालन है ।

Question ID : **4410091512514**
Option 1 ID : **4410095974114**
Option 2 ID : **4410095974116**
Option 3 ID : **4410095974117**
Option 4 ID : **4410095974115**

Q.19 दिए गए वाक्य में उचित परिमाणवाचक विशेषण का चयन करके रिक्त स्थान की पूर्ति करें-

परीक्षा के लिए --------तैयारी आवश्यक है।

Ans
✔ 1. पर्याप्त
✘ 2. कौन -सी
✘ 3. यह
✘ 4. अच्छी

Question ID : **441009400986**
Option 1 ID : **4410091569376**
Option 2 ID : **4410091569379**
Option 3 ID : **4410091569378**
Option 4 ID : **4410091569377**

Q.20 नीचे दिए वाक्यांश के लिए एक सार्थक शब्द दिए गए विकल्पों में से चुनिए-
किसी काम में दूसरे से आगे बढ़ जाने की इच्छा

Ans
✔ 1. स्पर्द्धा
✘ 2. महदेच्छा
✘ 3. आकांक्षा
✘ 4. महत्वाकांक्षा

Question ID : **441009401959**
Option 1 ID : **4410091573222**
Option 2 ID : **4410091573225**
Option 3 ID : **4410091573223**
Option 4 ID : **4410091573224**

Section : **Hindi Language and Comprehension1**

QuickSarkari.com | WhatsApp Channel | Telegram: t.me/quick_sarkari

Q.1 दिए गए वाक्य के रेखांकित शब्द का विलोम पहचानें-
पेड़ पर कई सूखी पत्तियाँ लटक रही थीं।

Ans
✔ 1. हरी
✘ 2. लंबी
✘ 3. सफेद
✘ 4. मोटी

Question ID : **4410091515565**
Option 1 ID : **4410095985661**
Option 2 ID : **4410095985662**
Option 3 ID : **4410095985663**
Option 4 ID : **4410095985664**

Q.2 दिए गए वाक्य के रेखांकित शब्द का विलोम पहचानें-
सुबह का शांत वातावरण मन को सुकून देता है।

Ans
✘ 1. हल्का
✔ 2. कोलाहलपूर्ण
✘ 3. नीला
✘ 4. मुलायम

Question ID : **4410091515593**
Option 1 ID : **4410095985777**
Option 2 ID : **4410095985775**
Option 3 ID : **4410095985778**
Option 4 ID : **4410095985776**

Q.3 वाक्य में त्रुटि की पहचान करें।
श्याम गनित में हमेशा अच्छे अंक प्राप्त करता है।

Ans
✘ 1. अंक
✘ 2. हमेशा
✔ 3. गनित
✘ 4. प्राप्त

Question ID : **441009283761**
Option 1 ID : **4410091102161**
Option 2 ID : **4410091102159**
Option 3 ID : **4410091102160**
Option 4 ID : **4410091102162**

QuickSarkari.com | WhatsApp Channel | Telegram: t.me/quick_sarkari

Q.4 दिए गए वाक्य के रेखांकित शब्द का विलोम पहचानें-
घर को <u>भीतर</u> से हमेशा साफ रखना चाहिए।

Ans
✗ 1. चौकोर
✗ 2. मीठा
✗ 3. ऊँचा
✓ 4. बाहर

Question ID : **4410091515523**
Option 1 ID : **4410095985496**
Option 2 ID : **4410095985494**
Option 3 ID : **4410095985495**
Option 4 ID : **4410095985493**

Q.5 दिए गए वाक्य के रेखांकित शब्द का पर्यायवाची पहचानें-
सही <u>मार्ग</u> चुनने से जीवन में सफलता के अवसर बढ़ते हैं।

Ans
✗ 1. बाज़ार
✗ 2. गुलाब
✗ 3. दीवार
✓ 4. रास्ता

Question ID : **4410091515487**
Option 1 ID : **4410095985352**
Option 2 ID : **4410095985350**
Option 3 ID : **4410095985351**
Option 4 ID : **4410095985349**

Q.6 निम्नलिखित विकल्पों में से शुद्ध वाक्य का विकल्प चुनें -

Ans
✓ 1. मैं आपके दर्शन करने आया हूँ।
✗ 2. मैं आपपर भक्ती रखता हूँ।
✗ 3. उसने माता के लिए कवीता लिखी थी।
✗ 4. वकीलों ने कागजों की जांच किया था।

Question ID : **441009267069**
Option 1 ID : **4410091037543**
Option 2 ID : **4410091037544**
Option 3 ID : **4410091037545**
Option 4 ID : **4410091037546**

QuickSarkari.com | WhatsApp Channel | Telegram: t.me/quick_sarkari

Q.7 दिए गए वाक्य के किस भाग में त्रुटि है?
सूर्य के तीन परियाय लिखो।

Ans
✗ 1. सूर्य
✓ 2. परियाय
✗ 3. लिखो ।
✗ 4. के तीन

Question ID : **441009298060**
Option 1 ID : **4410091159335**
Option 2 ID : **4410091159337**
Option 3 ID : **4410091159338**
Option 4 ID : **4410091159336**

Q.8 दिए गए वाक्य के किस भाग में त्रुटि है?
वहां की जलवायु मेरे अनुकुल नहीं है।

Ans
✗ 1. वहां की
✓ 2. अनुकुल
✗ 3. नहीं है।
✗ 4. जलवायु मेरे

Question ID : **4410091649061**
Option 1 ID : **4410096512460**
Option 2 ID : **4410096512462**
Option 3 ID : **4410096512463**
Option 4 ID : **4410096512461**

Q.9 निम्नलिखित वाक्य में रेखांकित शब्द का विलोम क्या होगा?
प्रदेश के मुख्यमंत्री <u>सदाचारी</u> हैं।

Ans
✗ 1. विनीत
✗ 2. विश्वासी
✗ 3. विहित
✓ 4. व्यभिचारी

Question ID : **4410091648841**
Option 1 ID : **4410096511576**
Option 2 ID : **4410096511578**
Option 3 ID : **4410096511577**
Option 4 ID : **4410096511579**

QuickSarkari.com | WhatsApp Channel | Telegram: t.me/quick_sarkari

Q.10 **निम्नलिखित वाक्य में रेखांकित शब्द का पर्यायवाची क्या होगा?**
शंकराचार्य भारतीय मेधा का सर्वोत्तम उदाहरण हैं।

Ans
✔ 1. प्रज्ञा
✘ 2. शील
✘ 3. स्फूर्ति
✘ 4. रियाया

Question ID : **4410091576422**
Option 1 ID : **4410096226462**
Option 2 ID : **4410096226460**
Option 3 ID : **4410096226463**
Option 4 ID : **4410096226461**

Comprehension:

निम्नलिखित **गद्यांश** के आधार पर प्रश्नों के उत्तर दीजिए।
भारत नेट भारत का विस्तृत ऑप्टिक फाइबर हाईवे है, जो डिजिटल दूरी को कम करके कनेक्टिविटी की चुनौतियों को पार करता है। यह 1.39 लाख करोड़ रुपए के बजट के साथ दुनिया की सबसे बड़ी ग्रामीण ब्रॉडबैंड पहल की स्थापना करता है। 2025 तक 6.4 लाख गाँवों को हाई स्पीड ब्रॉडबैंड नेटवर्क से जोड़ने का महत्त्वाकांक्षी लक्ष्य है। 2018 से, दिसंबर 2023 तक देश में 6.64 लाख किलोमीटर ऑप्टिकल फाइबर बिछाया गया है। दिसंबर 2023 तक कुल 2.64 लाख नियोजित सेवाओं में से 2.08 लाख ग्राम पंचायतें पहले से ही सेवाओं के साथ सशक्त है। भारतनेट ने दिसंबर 2023 तक पहले ही 12 लाख नौकरियों का सृजन कर लिया है और इसके आर्थिक प्रभाव को दर्शाते हुए 2025 तक 1 लाख करोड़ रुपए का सृजन करने का अनुमान है। भारत की पहली 2,312 किलोमीटर लंबी ऑप्टिकल फाइबर परियोजना 2018 में चेन्नई-अंडमान और निकोबार द्वीप समूह को जोड़ने के लिए पूरी की गई थी।

SubQuestion No : 11

Q.11 **2025 तक कितने गाँवों को हाईस्पीड ब्रॉडबैंड नेटवर्क से जोड़ने का लक्ष्य है?**

Ans
✔ 1. 6.4 लाख
✘ 2. 6.64 लाख
✘ 3. 2.64 लाख
✘ 4. 2.06 लाख

Question ID : **4410091653365**
Option 1 ID : **4410096528811**
Option 2 ID : **4410096528810**
Option 3 ID : **4410096528812**
Option 4 ID : **4410096528813**

Quick Sarkari

Comprehension:

निम्नलिखित **गद्यांश** के आधार पर प्रश्नों के उत्तर दीजिए।
भारत नेट भारत का विस्तृत ऑप्टिक फाइबर हाईवे है, जो डिजिटल दूरी को कम करके कनेक्टिविटी की चुनौतियों को पार करता है। यह 1.39 लाख करोड़ रुपए के बजट के साथ दुनिया की सबसे बड़ी ग्रामीण ब्रॉडबैंड पहल की स्थापना करता है। 2025 तक 6.4 लाख गाँवों को हाई स्पीड ब्रॉडबैंड नेटवर्क से जोड़ने का महत्त्वाकांक्षी लक्ष्य है। 2018 से, दिसंबर 2023 तक देश में 6.64 लाख किलोमीटर ऑप्टिकल फाइबर बिछाया गया है। दिसंबर 2023 तक कुल 2.64 लाख नियोजित सेवाओं में से 2.08 लाख ग्राम पंचायतें पहले से ही सेवाओं के साथ सशक्त है। भारतनेट ने दिसंबर 2023 तक पहले ही 12 लाख नौकरियों का सृजन कर लिया है और इसके आर्थिक प्रभाव को दर्शाते हुए 2025 तक 1 लाख करोड़ रुपए का सृजन करने का अनुमान है। भारत की पहली 2,312 किलोमीटर लंबी ऑप्टिकल फाइबर परियोजना 2018 में चेन्नई-अंडमान और निकोबार द्वीप समूह को जोड़ने के लिए पूरी की गई थी।

SubQuestion No : 12

Q.12 भारत की पहली ऑप्टिकल फाइबर परियोजना 2018 में किसको आपस में जोड़ती है?

Ans

✗ 1. दिल्ली और लक्ष्यद्वीप

✗ 2. कश्मीर से कन्याकुमारी

✗ 3. दादर नगर से मुंबई

✓ 4. चेन्नई-अंडमान

Question ID : **4410091653366**
Option 1 ID : **4410096528817**
Option 2 ID : **4410096528814**
Option 3 ID : **4410096528815**
Option 4 ID : **4410096528816**

Comprehension:

निम्नलिखित **गद्यांश** के आधार पर प्रश्नों के उत्तर दीजिए।
भारत नेट भारत का विस्तृत ऑप्टिक फाइबर हाईवे है, जो डिजिटल दूरी को कम करके कनेक्टिविटी की चुनौतियों को पार करता है। यह 1.39 लाख करोड़ रुपए के बजट के साथ दुनिया की सबसे बड़ी ग्रामीण ब्रॉडबैंड पहल की स्थापना करता है। 2025 तक 6.4 लाख गाँवों को हाई स्पीड ब्रॉडबैंड नेटवर्क से जोड़ने का महत्त्वाकांक्षी लक्ष्य है। 2018 से, दिसंबर 2023 तक देश में 6.64 लाख किलोमीटर ऑप्टिकल फाइबर बिछाया गया है। दिसंबर 2023 तक कुल 2.64 लाख नियोजित सेवाओं में से 2.08 लाख ग्राम पंचायतें पहले से ही सेवाओं के साथ सशक्त है। भारतनेट ने दिसंबर 2023 तक पहले ही 12 लाख नौकरियों का सृजन कर लिया है और इसके आर्थिक प्रभाव को दर्शाते हुए 2025 तक 1 लाख करोड़ रुपए का सृजन करने का अनुमान है। भारत की पहली 2,312 किलोमीटर लंबी ऑप्टिकल फाइबर परियोजना 2018 में चेन्नई-अंडमान और निकोबार द्वीप समूह को जोड़ने के लिए पूरी की गई थी।

SubQuestion No : 13

Q.13 भारतनेट ने दिसंबर 2023 तक कितनी नौकरियों का सृजन कर लिया है?

Ans

✗ 1. 27 लाख

✓ 2. 12 लाख

✗ 3. 15 लाख

✗ 4. 20 लाख

Question ID : **4410091653367**
Option 1 ID : **4410096528818**
Option 2 ID : **4410096528820**
Option 3 ID : **4410096528821**
Option 4 ID : **4410096528819**

Comprehension:

निम्नलिखित **गद्यांश** के आधार पर प्रश्नों के उत्तर दीजिए।
भारत नेट भारत का विस्तृत ऑप्टिक फाइबर हाईवे है, जो डिजिटल दूरी को कम करके कनेक्टिविटी की चुनौतियों को पार करता है। यह 1.39 लाख करोड़ रुपए के बजट के साथ दुनिया की सबसे बड़ी ग्रामीण ब्रॉडबैंड पहल की स्थापना करता है। 2025 तक 6.4 लाख गाँवों को हाई स्पीड ब्रॉडबैंड नेटवर्क से जोड़ने का महत्त्वाकांक्षी लक्ष्य है। 2018 से, दिसंबर 2023 तक देश में 6.64 लाख किलोमीटर ऑप्टिकल फाइबर बिछाया गया है। दिसंबर 2023 तक कुल 2.64 लाख नियोजित सेवाओं में से 2.08 लाख ग्राम पंचायतें पहले से ही सेवाओं के साथ सशक्त है। भारतनेट ने दिसंबर 2023 तक पहले ही 12 लाख नौकरियों का सृजन कर लिया है और इसके आर्थिक प्रभाव को दर्शाते हुए 2025 तक 1 लाख करोड़ रुपए का सृजन करने का अनुमान है। भारत की पहली 2,312 किलोमीटर लंबी ऑप्टिकल फाइबर परियोजना 2018 में चेन्नई-अंडमान और निकोबार द्वीप समूह को जोड़ने के लिए पूरी की गई थी।

SubQuestion No : 14

Q.14 उपर्युक्त गद्यांश के आधार पर शीर्षक बताएं-

Ans

✗ 1. भारत में नया संजाल

✗ 2. भारत की योजना

✓ 3. भारत नेट का विस्तृत संसार

✗ 4. भारत की अर्थव्यवस्था

Question ID : **4410091653363**
Option 1 ID : **4410096528803**
Option 2 ID : **4410096528805**
Option 3 ID : **4410096528802**
Option 4 ID : **4410096528804**

Comprehension:

निम्नलिखित **गद्यांश** के आधार पर प्रश्नों के उत्तर दीजिए।
भारत नेट भारत का विस्तृत ऑप्टिक फाइबर हाईवे है, जो डिजिटल दूरी को कम करके कनेक्टिविटी की चुनौतियों को पार करता है। यह 1.39 लाख करोड़ रुपए के बजट के साथ दुनिया की सबसे बड़ी ग्रामीण ब्रॉडबैंड पहल की स्थापना करता है। 2025 तक 6.4 लाख गाँवों को हाई स्पीड ब्रॉडबैंड नेटवर्क से जोड़ने का महत्त्वाकांक्षी लक्ष्य है। 2018 से, दिसंबर 2023 तक देश में 6.64 लाख किलोमीटर ऑप्टिकल फाइबर बिछाया गया है। दिसंबर 2023 तक कुल 2.64 लाख नियोजित सेवाओं में से 2.08 लाख ग्राम पंचायतें पहले से ही सेवाओं के साथ सशक्त है। भारतनेट ने दिसंबर 2023 तक पहले ही 12 लाख नौकरियों का सृजन कर लिया है और इसके आर्थिक प्रभाव को दर्शाते हुए 2025 तक 1 लाख करोड़ रुपए का सृजन करने का अनुमान है। भारत की पहली 2,312 किलोमीटर लंबी ऑप्टिकल फाइबर परियोजना 2018 में चेन्नई-अंडमान और निकोबार द्वीप समूह को जोड़ने के लिए पूरी की गई थी।

SubQuestion No : 15

Q.15 भारत नेट क्या है?

Ans

✗ 1. इंफ्रास्ट्रक्चर एवं हाइवे

✗ 2. कनेक्टिविटी एवं हाइवे

✓ 3. ऑप्टिक फाइबर हाईवे

✗ 4. रोपवे एवं हाइवे

Question ID : **4410091653364**
Option 1 ID : **4410096528808**
Option 2 ID : **4410096528809**
Option 3 ID : **4410096528806**
Option 4 ID : **4410096528807**

Comprehension:

निम्नलिखित गद्यांश को ध्यानपूर्वक पढ़ें और पूछे गए प्रश्नों के उत्तर दें।
आज का विद्यार्थी कल का नागरिक है। उस पर राष्ट्र की भावी उन्नति निर्भर है। वह यदि आदर्श हुआ तो भविष्य में राष्ट्र को उन्नति के शिखर पर पहुँचा सकता है, देश में सुधार की सुरसरी प्रवाहित कर सकता है, समाज की कुरीतियों एवं अंधविश्वासों का अंत कर सकता है, अपने यहाँ ज्ञान-विज्ञान का प्रकाश फैला सकता है, जाति का नैतिक स्तर ऊँचा उठा सकता है। हमारे विद्यालय में शशिभूषण ऐसा ही विद्यार्थी है। वह बहुत परिश्रमी तथा अध्ययनशील है। दिन-रात पुस्तकों से चिपटा रहता है। पाठ्य-पुस्तकों के अतिरिक्त अन्य पुस्तकों का अध्ययन भी उसे प्रिय है। ज्ञान-वृद्धि के लिए वह सदैव प्रयत्नशील रहता है। ज्ञान की एक किरण मिलने की भी जहाँ उसे आशा होती है वहाँ जाने में वह आलस्य नहीं करता। विद्वानों के व्याख्यान एवं वाद-विवाद से वह अपने ज्ञान-भंडार को भरता रहता है। शशिभूषण जिज्ञासु है। विभिन्न विषयों के अध्यापकों से प्रश्न पूछ-पूछ कर अपनी शंकाओं का समाधान एवं कठिनाइयों का निराकरण करता रहता है। ऐसा करने में उसे तनिक भी संकोच नहीं है।

SubQuestion No : 16

Q.16 "निराकरण" शब्द का अर्थ है—

Ans

✗ 1. शुरुआत करना

✓ 2. समाधान करना

✗ 3. आलोचना करना

✗ 4. रोकना

Question ID : **4410091515791**
Option 1 ID : **4410095986545**
Option 2 ID : **4410095986546**
Option 3 ID : **4410095986548**
Option 4 ID : **4410095986547**

Comprehension:

निम्नलिखित गद्यांश को ध्यानपूर्वक पढ़ें और पूछे गए प्रश्नों के उत्तर दें।
आज का विद्यार्थी कल का नागरिक है। उस पर राष्ट्र की भावी उन्नति निर्भर है। वह यदि आदर्श हुआ तो भविष्य में राष्ट्र को उन्नति के शिखर पर पहुँचा सकता है, देश में सुधार की सुरसरी प्रवाहित कर सकता है, समाज की कुरीतियों एवं अंधविश्वासों का अंत कर सकता है, अपने यहाँ ज्ञान-विज्ञान का प्रकाश फैला सकता है, जाति का नैतिक स्तर ऊँचा उठा सकता है। हमारे विद्यालय में शशिभूषण ऐसा ही विद्यार्थी है। वह बहुत परिश्रमी तथा अध्ययनशील है। दिन-रात पुस्तकों से चिपटा रहता है। पाठ्य-पुस्तकों के अतिरिक्त अन्य पुस्तकों का अध्ययन भी उसे प्रिय है। ज्ञान-वृद्धि के लिए वह सदैव प्रयत्नशील रहता है। ज्ञान की एक किरण मिलने की भी जहाँ उसे आशा होती है वहाँ जाने में वह आलस्य नहीं करता। विद्वानों के व्याख्यान एवं वाद-विवाद से वह अपने ज्ञान-भंडार को भरता रहता है। शशिभूषण जिज्ञासु है। विभिन्न विषयों के अध्यापकों से प्रश्न पूछ-पूछ कर अपनी शंकाओं का समाधान एवं कठिनाइयों का निराकरण करता रहता है। ऐसा करने में उसे तनिक भी संकोच नहीं है।

SubQuestion No : 17

Q.17 गद्यांश के अनुसार निम्न में से कौन सा कथन सही है?

Ans

✗ 1. शशिभूषण केवल पाठ्य-पुस्तकें पढ़ता है।

✗ 2. वह विद्यालय की गतिविधियों में भाग नहीं लेता।

✗ 3. शशिभूषण को प्रश्न पूछने में संकोच होता है।

✓ 4. शशिभूषण ज्ञान प्राप्ति के लिए सदैव तत्पर रहता है।

Question ID : **4410091515790**
Option 1 ID : **4410095986541**
Option 2 ID : **4410095986544**
Option 3 ID : **4410095986542**
Option 4 ID : **4410095986543**

Comprehension:

निम्नलिखित गद्यांश को ध्यानपूर्वक पढ़ें और पूछे गए प्रश्नों के उत्तर दें।
आज का विद्यार्थी कल का नागरिक है। उस पर राष्ट्र की भावी उन्नति निर्भर है। वह यदि आदर्श हुआ तो भविष्य में राष्ट्र को उन्नति के शिखर पर पहुँचा सकता है, देश में सुधार की सुरसरी प्रवाहित कर सकता है, समाज की कुरीतियों एवं अंधविश्वासों का अंत कर सकता है, अपने यहाँ ज्ञान-विज्ञान का प्रकाश फैला सकता है, जाति का नैतिक स्तर ऊँचा उठा सकता है। हमारे विद्यालय में शशिभूषण ऐसा ही विद्यार्थी है। वह बहुत परिश्रमी तथा अध्ययनशील है। दिन-रात पुस्तकों से चिपटा रहता है। पाठ्य-पुस्तकों के अतिरिक्त अन्य पुस्तकों का अध्ययन भी उसे प्रिय है। ज्ञान-वृद्धि के लिए वह सदैव प्रयत्नशील रहता है। ज्ञान की एक किरण मिलने की भी जहाँ उसे आशा होती है वहाँ जाने में वह आलस्य नहीं करता। विद्वानों के व्याख्यान एवं वाद-विवाद से वह अपने ज्ञान-भंडार को भरता रहता है। शशिभूषण जिज्ञासु है। विभिन्न विषयों के अध्यापकों से प्रश्न पूछ-पूछ कर अपनी शंकाओं का समाधान एवं कठिनाइयों का निराकरण करता रहता है। ऐसा करने में उसे तनिक भी संकोच नहीं है।

SubQuestion No : 18

Q.18 गद्यांश का मुख्य विषय क्या है?

Ans
✗ 1. विद्यार्थियों का सामाजिक जीवन
✗ 2. विद्यालय की दिनचर्या
✗ 3. राष्ट्र में तकनीकी प्रगति
✓ 4. शशिभूषण के गुण और अध्ययनशीलता

Question ID : **4410091515789**
Option 1 ID : **4410095986538**
Option 2 ID : **4410095986540**
Option 3 ID : **4410095986537**
Option 4 ID : **4410095986539**

Comprehension:

निम्नलिखित गद्यांश को ध्यानपूर्वक पढ़ें और पूछे गए प्रश्नों के उत्तर दें।
आज का विद्यार्थी कल का नागरिक है। उस पर राष्ट्र की भावी उन्नति निर्भर है। वह यदि आदर्श हुआ तो भविष्य में राष्ट्र को उन्नति के शिखर पर पहुँचा सकता है, देश में सुधार की सुरसरी प्रवाहित कर सकता है, समाज की कुरीतियों एवं अंधविश्वासों का अंत कर सकता है, अपने यहाँ ज्ञान-विज्ञान का प्रकाश फैला सकता है, जाति का नैतिक स्तर ऊँचा उठा सकता है। हमारे विद्यालय में शशिभूषण ऐसा ही विद्यार्थी है। वह बहुत परिश्रमी तथा अध्ययनशील है। दिन-रात पुस्तकों से चिपटा रहता है। पाठ्य-पुस्तकों के अतिरिक्त अन्य पुस्तकों का अध्ययन भी उसे प्रिय है। ज्ञान-वृद्धि के लिए वह सदैव प्रयत्नशील रहता है। ज्ञान की एक किरण मिलने की भी जहाँ उसे आशा होती है वहाँ जाने में वह आलस्य नहीं करता। विद्वानों के व्याख्यान एवं वाद-विवाद से वह अपने ज्ञान-भंडार को भरता रहता है। शशिभूषण जिज्ञासु है। विभिन्न विषयों के अध्यापकों से प्रश्न पूछ-पूछ कर अपनी शंकाओं का समाधान एवं कठिनाइयों का निराकरण करता रहता है। ऐसा करने में उसे तनिक भी संकोच नहीं है।

SubQuestion No : 19

Q.19 इस गद्यांश का उपयुक्त शीर्षक क्या होगा?

Ans
✗ 1. विद्यार्थी और विद्यालय
✗ 2. भविष्य की समस्याएँ
✗ 3. राष्ट्र की उन्नति के मार्ग
✓ 4. आदर्श छात्र शशिभूषण

Question ID : **4410091515792**
Option 1 ID : **4410095986549**
Option 2 ID : **4410095986552**
Option 3 ID : **4410095986551**
Option 4 ID : **4410095986550**

Comprehension:

निम्नलिखित गद्यांश को ध्यानपूर्वक पढ़ें और पूछे गए प्रश्नों के उत्तर दें।
आज का विद्यार्थी कल का नागरिक है। उस पर राष्ट्र की भावी उन्नति निर्भर है। वह यदि आदर्श हुआ तो भविष्य में राष्ट्र को उन्नति के शिखर पर पहुँचा सकता है, देश में सुधार की सुरसरी प्रवाहित कर सकता है, समाज की कुरीतियों एवं अंधविश्वासों का अंत कर सकता है, अपने यहाँ ज्ञान-विज्ञान का प्रकाश फैला सकता है, जाति का नैतिक स्तर ऊँचा उठा सकता है। हमारे विद्यालय में शशिभूषण ऐसा ही विद्यार्थी है। वह बहुत परिश्रमी तथा अध्ययनशील है। दिन-रात पुस्तकों से चिपटा रहता है। पाठ्य-पुस्तकों के अतिरिक्त अन्य पुस्तकों का अध्ययन भी उसे प्रिय है। ज्ञान-वृद्धि के लिए वह सदैव प्रयत्नशील रहता है। ज्ञान की एक किरण मिलने की भी जहाँ उसे आशा होती है वहाँ जाने में वह आलस्य नहीं करता। विद्वानों के व्याख्यान एवं वाद-विवाद से वह अपने ज्ञान-भंडार को भरता रहता है। शशिभूषण जिज्ञासु है। विभिन्न विषयों के अध्यापकों से प्रश्न पूछ-पूछ कर अपनी शंकाओं का समाधान एवं कठिनाइयों का निराकरण करता रहता है। ऐसा करने में उसे तनिक भी संकोच नहीं है।

SubQuestion No : 20

Q.20 इस गद्यांश का केंद्रीय विषय क्या है?

Ans

✗ 1. नैतिक शिक्षा की आलोचना

✗ 2. विज्ञान का विकास

✓ 3. आदर्श विद्यार्थी का महत्व

✗ 4. विद्यालय की समस्याएँ

Question ID : **4410091515788**
Option 1 ID : **4410095986535**
Option 2 ID : **4410095986536**
Option 3 ID : **4410095986534**
Option 4 ID : **4410095986533**

"

Quick Sarkari

Quick Sarkari

Thank you for studying with QuickSarkari!

Get the latest Sarkari Naukri notifications, admit cards, results, answer keys and free previous-year papers first - follow us on WhatsApp and Telegram.

Visit www.quicksarkari.com

Join our WhatsApp Channel

https://whatsapp.com/channel/0029VaxxbrREquiPoXTWM229

Join our Telegram Channel

https://t.me/quick_sarkari

Share this PDF with your friends preparing for DSSSB exams.