DSSSB PREVIOUS YEAR PAPER WITH ANSWER KEY

DSSSB Assistant Teacher (Primary) – PRT

10 April 2026 · Shift 1

डीएसएसएसबी सहायक अध्यापक (प्राथमिक) – PRT – 10 अप्रैल 2026, शिफ्ट 1 का प्रश्न पत्र, उत्तर कुंजी सहित

200	120 min	1 / −0.25	EN + HI
Questions / प्रश्न	Duration / समय	Marks per Q / अंक	Language / भाषा

Sections: General Intelligence and Reasoning Ability, General Awareness, Arithmetical and Numerical Ability, English Language and Comprehension, Hindi Language and Comprehension, Assistant Teacher (Primary) – PRT

INSIDE THIS PDF / इस PDF में

Question Paper in English + Hindi with Answer Key (correct option marked in green) + answer table — Page 2–47
प्रश्न पत्र अंग्रेज़ी + हिंदी में, उत्तर कुंजी सहित (सही विकल्प हरे रंग में) + उत्तर तालिका

Official DSSSB Response Sheet with Answer Key (correct option ticked in green) — Page 48–106
आधिकारिक DSSSB रिस्पॉन्स शीट, उत्तर कुंजी सहित (सही विकल्प हरे टिक से)

HOW TO USE THIS PAPER / इस पेपर का उपयोग कैसे करें

1. Attempt the paper first as a timed online mock test (link below).
   पहले नीचे दिए लिंक से इसे टाइमर के साथ ऑनलाइन मॉक टेस्ट के रूप में हल करें।
2. Check your score, section-wise analysis and solutions online.
   ऑनलाइन अपना स्कोर, खंड-वार विश्लेषण और हल देखें।
3. Use this PDF for revision. Correct answers are shown in green.
   दोहराने के लिए इस PDF का उपयोग करें। सही उत्तर हरे रंग में दिए गए हैं।

Attempt this paper as a FREE online mock test
इस पेपर को फ्री ऑनलाइन मॉक टेस्ट के रूप में हल करें – टाइमर, स्कोर और हल के साथ
https://quicksarkari.com/dsssb-assistant-teacher-primary-10-april-2026-shift-1-mock-test/

All DSSSB Assistant Teacher (Primary) – PRT papers and mock tests: **quicksarkari.com/dsssb-mock-test/#assistant-teacher-primary**

Join WhatsApp Channel | Join Telegram Channel

DSSSB Assistant Teacher (Primary) – PRT – Question Paper (English + Hindi)

DSSSB सहायक अध्यापक (प्राथमिक) – PRT – प्रश्न पत्र (अंग्रेज़ी + हिंदी)

Exam held on 10 April 2026, Shift 1 · 200 questions · correct answers marked ✔ in green
परीक्षा तिथि 10 अप्रैल 2026, शिफ्ट 1 · 200 प्रश्न · सही उत्तर हरे रंग में ✔ से चिह्नित

> The official paper for this shift was in English. The Hindi version of each question is a translation prepared by QuickSarkari; the language-section questions are shown as asked.
> इस शिफ्ट का आधिकारिक प्रश्न पत्र अंग्रेज़ी में था। प्रत्येक प्रश्न का हिंदी संस्करण QuickSarkari द्वारा तैयार किया गया अनुवाद है; भाषा खंड के प्रश्न मूल रूप में दिए गए हैं।

General Intelligence and Reasoning Ability

Q.1 Select the correct mirror image of the given figure when the mirror is placed at MN as shown below.

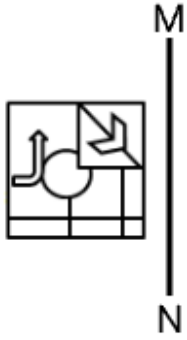

दर्पण को नीचे दर्शाए अनुसार MN पर रखे जाने पर दी गई आकृति के सही दर्पण प्रतिबिंब का चयन करें।

(1) 

(2) 

(3)  ✔

(4) 

QuickSarkari.com | WhatsApp Channel | Telegram: t.me/quick_sarkari

Q.2 What should come in place of '?' in the given series?
163 132 107 88 75 ?
दी गई श्रृंखला में प्रश्न चिह्न '?' के स्थान पर क्या आना चाहिए?
163 132 107 88 75 ?

(1) 59
(2) 65
(3) 68 ✔
(4) 61

Q.3 C is the brother of O. O is the father of R. T is the father of Y. Y is the son of R. How is T related to C?
C, O का भाई है। O, R का पिता है। T, Y का पिता है। Y, R का पुत्र है। T का C से क्या संबंध है?

(1) Brother's daughter / भाई की पुत्री
(2) Daughter's husband / पुत्री का पति
(3) Brother's daughter's son / भाई की पुत्री का पुत्र
(4) Brother's daughter's husband / भाई की पुत्री का पति ✔

Q.4 All 50 students in a class are standing in a straight line facing the north. Shyam is 9th from the right end while Ram is 15th from the left end. How many students stand between Shyam and Ram?
एक कक्षा के सभी 50 विद्यार्थी उत्तर की ओर मुख करके एक सीधी पंक्ति में खड़े हैं। श्याम दाएँ छोर से 9वें स्थान पर है, जबकि राम बाएँ छोर से 15वें स्थान पर है। श्याम और राम के बीच कितने विद्यार्थी खड़े हैं?

(1) 25
(2) 28
(3) 26 ✔
(4) 27

Q.5 Based on the English alphabetical order, three of the following four letter-cluster pairs are alike in a certain way and thus form a group. Which is the one that does not belong to that group?
(Note: The odd one out is not based on the number of consonants/vowels or their position in the letter cluster.)
अंग्रेज़ी वर्णमाला क्रम के आधार पर, निम्नलिखित चार अक्षर-समूह युग्मों में से तीन किसी निश्चित प्रकार से एकसमान हैं और इस प्रकार एक समूह बनाते हैं। वह कौन-सा युग्म है जो उस समूह से संबंधित नहीं है?
(नोट: असंगत अक्षर-समूह, उस अक्षर-समूह में व्यंजनों/स्वरों की संख्या या उनके स्थान पर आधारित नहीं है।)

(1) CB - DC
(2) GF - HG
(3) IH - JH ✔
(4) ON - PO

Q.6 Each vowel in the word POLARISE is changed to the letter immediately preceding it in the English alphabetical order and each consonant is changed to the letter immediately following it in the English alphabetical order. How many letters will appear exactly twice in the new group of letters thus formed?
शब्द POLARISE के प्रत्येक स्वर को अंग्रेज़ी वर्णमाला क्रम में उसके ठीक पहले वाले अक्षर से बदल दिया जाता है और प्रत्येक व्यंजन को अंग्रेज़ी वर्णमाला क्रम में उसके ठीक बाद वाले अक्षर से बदल दिया जाता है। इस प्रकार बने अक्षरों के नए समूह में कितने अक्षर ठीक दो बार आएँगे?

(1) Two / दो
(2) One / एक
(3) Zero / शून्य ✔
(4) Three / तीन

Q.7 Based on the English alphabetical order, three of the following four letter-cluster pairs are alike in a certain way and thus form a group. Which letter-cluster pair DOES NOT belong to that group?
(Note: The odd one out is not based on the number of consonants/vowels or their position in the letter-cluster.)
अंग्रेज़ी वर्णमाला क्रम के आधार पर, निम्नलिखित चार अक्षर-समूह युग्मों में से तीन किसी निश्चित प्रकार से एकसमान हैं और इस प्रकार एक समूह बनाते हैं। कौन-सा अक्षर-समूह युग्म उस समूह से संबंधित नहीं है?
(नोट: असंगत अक्षर-समूह, उस अक्षर-समूह में व्यंजनों/स्वरों की संख्या या उनके स्थान पर आधारित नहीं है।)

(1) LO-QJ
(2) EH-JD ✔
(3) HK-MF
(4) NQ-SL

Q.8 Refer to the following series and answer the question (all numbers are single digit numbers only).
(Left)3 7 4 5 2 4 8 4 9 4 2 1 5 3 4 6 2 1 5 7 3 7 5 9 8 5 (Right)
How many such odd digits are there each of which is immediately preceded by an odd digit and also immediately followed by an even digit?
निम्नलिखित श्रृंखला का संदर्भ लें और प्रश्न का उत्तर दें (सभी संख्याएँ केवल एक अंक वाली संख्याएँ हैं)।
(बाएँ)3 7 4 5 2 4 8 4 9 4 2 1 5 3 4 6 2 1 5 7 3 7 5 9 8 5 (दाएँ)
ऐसे कितने विषम अंक हैं, जिनमें से प्रत्येक के ठीक पहले एक विषम अंक है और ठीक बाद में एक सम अंक भी है?

(1) 2
(2) 3 ✔
(3) 4
(4) 1

Q.9 If + means -, - means x, x means ÷, ÷ means +, then what will come in place of the question mark (?) in the following equation?
156 + 22 - 3 ÷ 45 x 9 = ?
यदि + का अर्थ -, - का अर्थ x, x का अर्थ ÷, ÷ का अर्थ + है, तो निम्नलिखित समीकरण में प्रश्न चिह्न (?) के स्थान पर क्या आएगा?
156 + 22 - 3 ÷ 45 x 9 = ?

(1) 94
(2) 96
(3) 95 ✔
(4) 97

Q.10 Seven boxes, F, I, L, T, E, R and S, are kept one over the other but not necessarily in the same order. Only three boxes are kept below L. Only two boxes are kept between L and I. Only E is kept above R. F is kept at some place below T and at some place above S. Which box is kept at second position from the bottom?
सात बक्से, F, I, L, T, E, R और S, एक के ऊपर एक रखे गए हैं, लेकिन जरूरी नहीं कि इसी क्रम में हों। L के नीचे केवल तीन बक्से रखे गए हैं। L और I के बीच केवल दो बक्से रखे गए हैं। R के ऊपर केवल E रखा गया है। F को T के नीचे किसी स्थान पर और S के ऊपर किसी स्थान पर रखा गया है। नीचे से दूसरे स्थान पर कौन-सा बक्सा रखा गया है?

(1) S ✔
(2) L
(3) R
(4) F

Q.11 What will come in place of '?' in the following equation, if '+' and '-' are interchanged and '×' and '÷' are interchanged?
308 × 14 - 17 ÷ 9 + 124 = ?
यदि '+' और '-' को आपस में बदल दिया जाए तथा '×' और '÷' को आपस में बदल दिया जाए, तो निम्नलिखित समीकरण में '?' के स्थान पर क्या आएगा?
308 × 14 - 17 ÷ 9 + 124 = ?

(1) 45
(2) 49
(3) 56
(4) 51 ✔

Q.12 Refer to the following letter series and answer the question (Left) T H T V Y W J C I O Q O J K L W W Z E (Right)
How many such vowels are there each of which is immediately preceded by a consonant and also immediately followed by a consonant?
निम्नलिखित अक्षर श्रृंखला का संदर्भ लें और प्रश्न का उत्तर दें (बाएँ) T H T V Y W J C I O Q O J K L W W Z E (दाएँ)
ऐसे कितने स्वर हैं, जिनमें से प्रत्येक के ठीक पहले एक व्यंजन है और ठीक बाद में भी एक व्यंजन है?

(1) 4
(2) 3
(3) 2
(4) 1 ✔

Q.13 FBAB is related to CYXY in a certain way based on the English alphabetical order. In the same way, BXWX is related to YUTU. To which of the following is KGFG related, following the same logic?
अंग्रेज़ी वर्णमाला क्रम के आधार पर FBAB एक निश्चित प्रकार से CYXY से संबंधित है। उसी प्रकार, BXWX, YUTU से संबंधित है। समान तर्क का अनुसरण करते हुए, KGFG निम्नलिखित में से किससे संबंधित है?

(1) HDCD ✔
(2) HEBH
(3) HCBD
(4) HDBD

Q.14 Below are given two sets of numbers. In each set of numbers, a certain mathematical operation on first number results in the second number. Similarly, certain mathematical operation on second number results in the third number and so on. Which of the given options follows the same set of operations as in question? (NOTE : Operations should be performed on the whole numbers, without breaking down the numbers into its constituent digits. E.g. 13 – Operations on 13 such as adding / subtracting /multiplying etc. to 13 can be performed. Breaking down 13 into 1 and 3 and then performing mathematical operations on 1 and 3 is not allowed.) 33 - 36 - 31 - 124 38 - 41 - 36 - 144

नीचे संख्याओं के दो समुच्चय दिए गए हैं। संख्याओं के प्रत्येक समुच्चय में, पहली संख्या पर एक निश्चित गणितीय संक्रिया करने से दूसरी संख्या प्राप्त होती है। इसी प्रकार, दूसरी संख्या पर एक निश्चित गणितीय संक्रिया करने से तीसरी संख्या प्राप्त होती है और इसी तरह आगे भी।
दिए गए विकल्पों में से कौन-सा विकल्प प्रश्न के समान संक्रियाओं के समुच्चय का अनुसरण करता है?
(नोट: संक्रियाएँ संख्याओं को उनके घटक अंकों में विभाजित किए बिना, पूर्ण संख्याओं पर की जानी चाहिए। उदाहरण के लिए 13 – 13 पर संक्रियाएँ जैसे 13 में जोड़ना / घटाना / गुणा करना आदि किया जा सकता है। 13 को 1 और 3 में विभाजित करना और फिर 1 और 3 पर गणितीय संक्रियाएँ करना वर्जित है।)
33 - 36 - 31 - 124 38 - 41 - 36 - 144

(1) 31 - 33 - 28 - 112
(2) 49 - 52 - 47 - 188 ✔
(3) 41 - 44 - 37 - 185
(4) 32 - 36 - 31 - 155

Q.15 Six people, A, B, C, D, E and F, are sitting in a row, facing north.
Only two people sit between B and F. D sits to the immediate left of F. A sits second to the right of E. C is an immediate neighbour of F. E sits to the immediate left of B. How many people sit between B and C?

छह व्यक्ति, A, B, C, D, E और F, उत्तर की ओर मुख करके एक पंक्ति में बैठे हैं।
B और F के बीच केवल दो व्यक्ति बैठे हैं। D, F के ठीक बाईं ओर बैठा है। A, E के दाईं ओर दूसरे स्थान पर बैठा है। C, F का निकटतम पड़ोसी है। E, B के ठीक बाईं ओर बैठा है।
B और C के बीच कितने व्यक्ति बैठे हैं?

(1) One / एक
(2) Two / दो
(3) None / कोई नहीं
(4) Three / तीन ✔

Q.16 In a certain code language, 'FATE' is coded as '4265' and 'FALE' is coded as '2145'. What is the code for 'L' in the given code language?

एक निश्चित कूट भाषा में, 'FATE' को '4265' के रूप में कूटबद्ध किया जाता है और 'FALE' को '2145' के रूप में कूटबद्ध किया जाता है।
दी गई कूट भाषा में 'L' के लिए कूट क्या है?

(1) 2
(2) 1 ✔
(3) 6
(4) 4

Q.17 Refer to the following letter series and answer the question that follows. Counting to be done from left to right only.
(Left) Q A W S E D U J Y H B V G T I O K B Y H T U I B C A D E Y E U (Right) How many such consonants are there each of which is immediately preceded by a vowel and also immediately followed by a vowel?
निम्नलिखित अक्षर श्रृंखला का संदर्भ लें और उसके बाद दिए गए प्रश्न का उत्तर दें। गिनती केवल बाएँ से दाएँ की जानी है।
(बाएँ) Q A W S E D U J Y H B V G T I O K B Y H T U I B C A D E Y E U (दाएँ)
ऐसे कितने व्यंजन हैं, जिनमें से प्रत्येक के ठीक पहले एक स्वर है और ठीक बाद में भी एक स्वर है?

(1) None / कोई नहीं
(2) Two / दो
(3) Three / तीन ✔
(4) One / एक

Q.18 Each of L, A, Y, E, R, S and T has an exam on a different day of a week starting from Monday and ending on Sunday of the same week. S has exam on Thursday, and Y has exam on Saturday. R has exam immediately before A. T has exam on one of the days after L. E has exam immediately after A. How many people have exams between T and E?
L, A, Y, E, R, S और T में से प्रत्येक की परीक्षा एक ही सप्ताह के सोमवार से प्रारंभ होकर रविवार को समाप्त होने वाले सप्ताह के एक अलग-अलग दिन है। S की परीक्षा गुरुवार को है, और Y की परीक्षा शनिवार को है। R की परीक्षा A से ठीक पहले है। T की परीक्षा L के बाद वाले दिनों में से किसी एक दिन है। E की परीक्षा A के ठीक बाद है। T और E के बीच कितने व्यक्तियों की परीक्षाएँ हैं?

(1) One / एक
(2) Three / तीन ✔
(3) Four / चार
(4) Two / दो

QuickSarkari.com | WhatsApp Channel | Telegram: t.me/quick_sarkari

Q.19 Select the option in which the given figure is embedded (rotation is NOT allowed).



उस विकल्प का चयन करें जिसमें दी गई आकृति अंतर्निहित है (घुमाने की अनुमति नहीं है)।

(1)

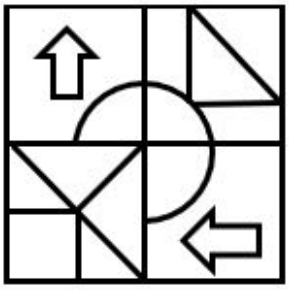

(2)

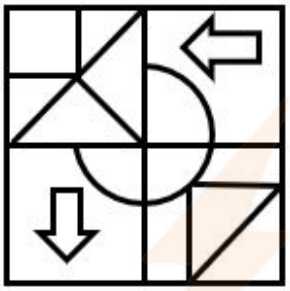

✔

(3)

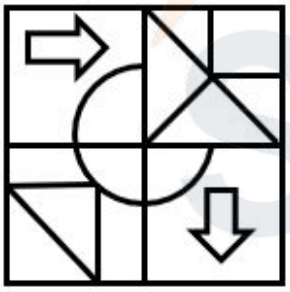

(4)

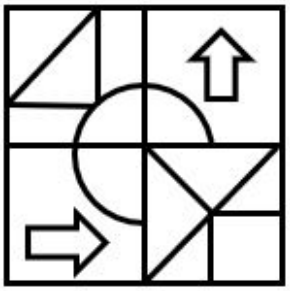

Q.20 Which of the following letter-number clusters will replace the question mark (?) in the given series to make it logically complete?

IFK167, DAF147, YVA127, TQV107, ?

निम्नलिखित में से कौन-सा अक्षर-संख्या समूह दी गई श्रृंखला को तार्किक रूप से पूर्ण करने के लिए उसमें प्रश्न चिह्न (?) का स्थान लेगा?

IFK167, DAF147, YVA127, TQV107, ?

(1) OLP87

(2) OUQ87

(3) VLQ87

(4) **OLQ87** ✔

QuickSarkari.com | WhatsApp Channel | Telegram: t.me/quick_sarkari

General Awareness

Q.21 When did India celebrate its First National Space Day in 2024?

भारत ने 2024 में अपना पहला राष्ट्रीय अंतरिक्ष दिवस कब मनाया?

(1) November 23, 2024 / 23 नवंबर, 2024

(2) October 23, 2024 / 23 अक्टूबर, 2024

(3) July 23, 2024 / 23 जुलाई, 2024

(4) August 23, 2024 / 23 अगस्त, 2024 ✔

Q.22 According to the Indian Constitution, the executive power of the Union is:

भारतीय संविधान के अनुसार, संघ की कार्यपालिका शक्ति:

(1) Shared equally between the President and the Chief Justice of India / राष्ट्रपति और भारत के मुख्य न्यायाधीश के बीच समान रूप से साझा की जाती है

(2) Vested solely in the Prime Minister / केवल प्रधानमंत्री में निहित होती है

(3) Exercised only during a national emergency / केवल राष्ट्रीय आपातकाल के दौरान प्रयोग की जाती है

(4) Vested in the President and exercised by him directly or through subordinate officers / राष्ट्रपति में निहित होती है और उसके द्वारा प्रत्यक्ष रूप से या अपने अधीनस्थ अधिकारियों के माध्यम से प्रयोग की जाती है ✔

Q.23 The second Five Year Plan in India was formulated on whose ideas?

भारत में दूसरी पंचवर्षीय योजना किसके विचारों पर तैयार की गई थी?

(1) T.T. Krishnamachari / टी.टी. कृष्णमाचारी

(2) Prasanta Chandra Mahalanobis / प्रशांत चंद्र महालनोबिस ✔

(3) Dr. John Mathai / डॉ. जॉन मथाई

(4) R.K. Shanmukham Chetty / आर.के. षणमुखम चेट्टी

Q.24 Which of the following statements is CORRECT regarding the term of office of the President of India?

भारत के राष्ट्रपति के पदावधि के संबंध में निम्नलिखित में से कौन-सा कथन सही है?

(1) The President can only be removed by the Prime Minister or the Chief Justice of India. / राष्ट्रपति को केवल प्रधानमंत्री या भारत के मुख्य न्यायाधीश द्वारा ही पद से हटाया जा सकता है।

(2) The President continues in office even after the term ends, until a successor takes charge. / राष्ट्रपति अपना कार्यकाल समाप्त होने के बाद भी, उत्तराधिकारी के पदभार ग्रहण करने तक पद पर बना रहता है। ✔

(3) The President must vacate office exactly on the completion of five years. / राष्ट्रपति को ठीक पाँच वर्ष पूरे होने पर पद रिक्त करना होता है।

(4) The President holds office for six years and cannot resign. / राष्ट्रपति छह वर्ष के लिए पद धारण करता है और त्यागपत्र नहीं दे सकता।

Q.25 Pyrolusite ore (MnO_2) is used for the preparation of _____.

पायरोलुसाइट अयस्क (MnO_2) का उपयोग _____ के निर्माण के लिए किया जाता है।

(1) sodium chromate / सोडियम क्रोमेट

(2) potassium dichromate / पोटैशियम डाइक्रोमेट

(3) potassium permanganate / पोटैशियम परमैंगनेट ✔

(4) sodium manganate / सोडियम मैंगनेट

Q.26 The tribal dance form "Karma" is traditionally performed by which community?

जनजातीय नृत्य शैली "करमा" पारंपरिक रूप से किस समुदाय द्वारा किया जाता है?

(1) Oraon / उरांव ✔

(2) Apatani / आपातानी

(3) Garo / गारो

(4) Bhil / भील

Q.27 The salary and allowances of the Chief Minister of the state are _____.

राज्य के मुख्यमंत्री के वेतन और भत्ते _____ होते हैं।

(1) Determined by the Pay Commission of the state / राज्य के वेतन आयोग द्वारा निर्धारित

(2) Determined by the Governor of the state / राज्य के राज्यपाल द्वारा निर्धारित

(3) Determined by the Parliament / संसद द्वारा निर्धारित

(4) Determined by the State Legislature / राज्य विधानमंडल द्वारा निर्धारित ✔

Q.28 When did the Ahom Revolt unfold in Assam as a resistance to British rule in the region?

असम में क्षेत्र में ब्रिटिश शासन के प्रतिरोध के रूप में अहोम विद्रोह कब हुआ?

(1) 1830

(2) 1844

(3) 1828 ✔

(4) 1834

Q.29 What was the total value of the five capital acquisition proposals approved by the DAC (Defence Acquisition Committee) on December 3, 2024?

3 दिसंबर, 2024 को DAC (रक्षा अधिग्रहण परिषद) द्वारा अनुमोदित पाँच पूंजी अधिग्रहण प्रस्तावों का कुल मूल्य कितना था?

(1) ₹15,000 Crore / ₹15,000 करोड़

(2) ₹21,772 Crore / ₹21,772 करोड़ ✔

(3) ₹25,000 Crore / ₹25,000 करोड़

(4) ₹18,600 Crore / ₹18,600 करोड़

Q.30 The World Energy Outlook 2025 was released by which organisation?

वर्ल्ड एनर्जी आउटलुक 2025 किस संगठन द्वारा जारी किया गया था?

(1) International Monetary Fund / अंतर्राष्ट्रीय मुद्रा कोष

(2) International Energy Agency / अंतर्राष्ट्रीय ऊर्जा एजेंसी ✔

(3) Organization Petroleum Energy Agency / ऑर्गनाइज़ेशन पेट्रोलियम एनर्जी एजेंसी

(4) World Meteorological Organization of Energy / वर्ल्ड मेटियोरोलॉजिकल ऑर्गनाइज़ेशन ऑफ एनर्जी

Q.31 Which international organisation published its Annual Report 2024-2025 and unveiled a Strategic Plan 2025-2028 in November 2025?

किस अंतर्राष्ट्रीय संगठन ने नवंबर 2025 में अपनी वार्षिक रिपोर्ट 2024-2025 प्रकाशित की और रणनीतिक योजना 2025-2028 का अनावरण किया?

(1) World Customs Organization / विश्व सीमा शुल्क संगठन ✔

(2) World Health Organization / विश्व स्वास्थ्य संगठन

(3) World Bank / विश्व बैंक

(4) International Labour Organization / अंतर्राष्ट्रीय श्रम संगठन

Q.32 The Harappan civilization is famous for its well-planned cities. Which of the following features is commonly found in Harappan cities?

हड़प्पा सभ्यता अपने सुनियोजित नगरों के लिए प्रसिद्ध है। निम्नलिखित में से कौन-सी विशेषता हड़प्पा के नगरों में सामान्यतः पाई जाती है?

(1) Grid pattern of streets / सड़कों का ग्रिड पैटर्न ✔

(2) Circular roads / वृत्ताकार सड़कें

(3) Random building construction / अव्यवस्थित भवन निर्माण

(4) Elevated platforms / ऊँचे चबूतरे

Q.33 What was the sex ratio in India as reported in Census 2011?

जनगणना 2011 में बताए गए अनुसार भारत में लिंगानुपात कितना था?

(1) 930 females per 1000 males / प्रति 1000 पुरुषों पर 930 महिलाएँ

(2) 943 females per 1000 males / प्रति 1000 पुरुषों पर 943 महिलाएँ ✔

(3) 920 females per 1000 males / प्रति 1000 पुरुषों पर 920 महिलाएँ

(4) 950 females per 1000 males / प्रति 1000 पुरुषों पर 950 महिलाएँ

Q.34 When did the NITI Aayog launch the baseline edition of the Multidimensional Poverty Index for India?

नीति आयोग ने भारत के लिए बहुआयामी गरीबी सूचकांक का आधारभूत संस्करण कब जारी किया?

(1) 2022

(2) 2025

(3) 2023

(4) 2021 ✔

Q.35 Who among the following leaders founded the Indian Home Rule Society?

निम्नलिखित में से किस नेता ने इंडियन होम रूल सोसाइटी की स्थापना की थी?

(1) Lala Lajpat Rai / लाला लाजपत राय

(2) Mahatma Gandhi / महात्मा गांधी

(3) Shyamji Krishna Varma / श्यामजी कृष्ण वर्मा ✔

(4) Motilal Nehru / मोतीलाल नेहरू

Q.36 The Indian women's national volleyball team secured gold at the 4th CAVA Women's Volleyball Nations League 2024 by winning how many sets in the final match?

भारतीय महिला राष्ट्रीय वॉलीबॉल टीम ने फाइनल मैच में कितने सेट जीतकर 4थी CAVA महिला वॉलीबॉल नेशंस लीग 2024 में स्वर्ण पदक हासिल किया?

(1) 5

(2) 3 ✔

(3) 4

(4) 2

Q.37 Which of the following schemes of the Government of India provides pensions to poor elderly individuals who lack support from caregivers?

भारत सरकार की निम्नलिखित में से कौन-सी योजना उन गरीब बुजुर्ग व्यक्तियों को पेंशन प्रदान करती है जिन्हें देखभाल करने वालों का सहारा नहीं है?

(1) National Social Assistance Programme / राष्ट्रीय सामाजिक सहायता कार्यक्रम ✔

(2) Mahatma Gandhi National Rural Employment Guarantee Act / महात्मा गांधी राष्ट्रीय ग्रामीण रोजगार गारंटी अधिनियम

(3) National Rural Employment Guarantee Scheme / राष्ट्रीय ग्रामीण रोजगार गारंटी योजना

(4) Pradhan Mantri Awas Yojana / प्रधानमंत्री आवास योजना

Q.38 During which century was the Quwwat al-Islam mosque and minaret built in Delhi?

दिल्ली में कुव्वत-उल-इस्लाम मस्जिद और मीनार का निर्माण किस शताब्दी में हुआ था?

(1) Tenth century / दसवीं शताब्दी

(2) **Twelfth century / बारहवीं शताब्दी ✔**

(3) Eleventh century / ग्यारहवीं शताब्दी

(4) Fifteenth century / पंद्रहवीं शताब्दी

Q.39 The 'Prime Minister's Employment Generation Programme (PMEGP)' is administered by which of the following Ministries of the Government of India?

'प्रधानमंत्री रोजगार सृजन कार्यक्रम (PMEGP)' भारत सरकार के निम्नलिखित में से किस मंत्रालय द्वारा प्रशासित किया जाता है?

(1) **Ministry of Micro, Small and Medium Enterprises / सूक्ष्म, लघु और मध्यम उद्यम मंत्रालय ✔**

(2) Ministry of Rural Development / ग्रामीण विकास मंत्रालय

(3) Ministry of Labour and Employment / श्रम और रोजगार मंत्रालय

(4) Ministry of Home Affairs / गृह मंत्रालय

Q.40 In a food chain, small carnivores or secondary consumers are present in which tropical level?

एक खाद्य श्रृंखला में, छोटे मांसाहारी या द्वितीयक उपभोक्ता किस पोषी स्तर में उपस्थित होते हैं?

(1) Trophic level fourth / चौथा पोषी स्तर

(2) Trophic level first / पहला पोषी स्तर

(3) Trophic level second / दूसरा पोषी स्तर

(4) **Trophic level third / तीसरा पोषी स्तर ✔**

Arithmetical and Numerical Ability

Q.41 Three numbers are in the ratio 4 : 3 : 13 and their LCM is 4524. Their HCF is:

तीन संख्याएँ 4 : 3 : 13 के अनुपात में हैं और उनका LCM 4524 है। उनका HCF है:

(1) 21

(2) 49

(3) **29 ✔**

(4) 45

Q.42 M and N begin a business partnership. M invests ₹42,000 more than N for 6 months, while N's investment lasts for 5 months. Out of a total profit of ₹1256, M earns ₹314 more than N. Determine the amount invested by M.

M और N एक व्यावसायिक साझेदारी शुरू करते हैं। M, 6 महीने के लिए N से ₹42,000 अधिक निवेश करता है, जबकि N का निवेश 5 महीने तक रहता है। ₹1256 के कुल लाभ में से, M, N से ₹314 अधिक अर्जित करता है। M द्वारा निवेश की गई राशि ज्ञात करें।

(1) ₹149825

(2) ₹149823

(3) **₹150000 ✔**

(4) ₹149969

Q.43 Water flows out through a circular pipe whose internal diameter is 2 cm, at the rate of 6 metres per second into a cylindrical tank, the radius of whose base is 100 cm. By how much will the level of water rise in 15 minutes?

पानी 2 cm आंतरिक व्यास वाले एक वृत्ताकार पाइप से 6 मीटर प्रति सेकंड की दर से एक बेलनाकार टंकी में बहता है, जिसके आधार की त्रिज्या 100 cm है। 15 मिनट में पानी का स्तर कितना ऊपर उठेगा?

(1) 62 cm
(2) 50 cm
(3) **54 cm ✔**
(4) 46 cm

Q.44 What is the difference between the average of prime numbers between 40 and 70 and the average of multiples of 2 between 10 and 60?

40 और 70 के बीच की अभाज्य संख्याओं के औसत तथा 10 और 60 के बीच 2 के गुणजों के औसत के बीच का अंतर क्या है?

(1) 26
(2) 20
(3) **18 ✔**
(4) 13

Q.45 A pipe can fill an empty tank in 10 hours. Another pipe can empty the filled tank in 40 hours. If both pipes are opened simultaneously when the tank is empty, how many hours will it take for the tank to be three-fourths full?

एक पाइप एक खाली टंकी को 10 घंटे में भर सकता है। दूसरा पाइप भरी हुई टंकी को 40 घंटे में खाली कर सकता है। यदि टंकी के खाली होने पर दोनों पाइप एक साथ खोल दिए जाते हैं, तो टंकी को तीन-चौथाई भरने में कितने घंटे लगेंगे?

(1) 20
(2) **10 ✔**
(3) 30
(4) 40

Q.46 What sum (in ₹) will earn a simple interest of ₹1560 in 3 years at 4% per year rate of interest?

कितनी राशि (₹ में) पर 4% वार्षिक ब्याज दर से 3 वर्षों में ₹1560 का साधारण ब्याज प्राप्त होगा?

(1) 26000
(2) **13000 ✔**
(3) 187.2
(4) 6500

Q.47 The diagonals of a rhombus shaped field are 360 m and 66 m long. What is the perimeter (in m) of the field?

एक समचतुर्भुज आकार के खेत के विकर्ण 360 m और 66 m लंबे हैं। खेत का परिमाप (m में) कितना है?

(1) 749
(2) 701
(3) 709
(4) **732 ✔**

Q.48 Ashish's salary is ₹12,000 per month. He spends ₹5,500 on house rent, ₹2,000 on bills and the rest of the amount is his monthly savings. Find his savings (in ₹) in a year, if in the month of his birthday he spent his complete monthly saving for birthday celebrations.

आशीष का वेतन ₹12,000 प्रति माह है। वह ₹5,500 मकान किराए पर, ₹2,000 बिलों पर खर्च करता है और शेष राशि उसकी मासिक बचत है। एक वर्ष में उसकी बचत (₹ में) ज्ञात करें, यदि अपने जन्मदिन वाले महीने में उसने अपनी पूरी मासिक बचत जन्मदिन के उत्सव पर खर्च कर दी।

(1) 45,000
(2) 40,500
(3) 49,500 ✔
(4) 54,000

Q.49 What time (correct to the nearest second) is required for a 268 m long train to cross a 440 m long tunnel, if the train travels at a speed of 17 km/h?

यदि एक 268 m लंबी ट्रेन 17 km/h की चाल से चलती है, तो उसे 440 m लंबी सुरंग को पार करने में कितना समय (निकटतम सेकंड तक सही) लगेगा?

(1) 157
(2) 153
(3) 150 ✔
(4) 165

Q.50 A, B and C started a business on partnership. A invested 1/5th of the total investment and B invested 1/3rd of the total investment. What is the ratio of shares of profits of A, B and C, respectively?

A, B और C ने साझेदारी में एक व्यवसाय शुरू किया। A ने कुल निवेश का 1/5 भाग और B ने कुल निवेश का 1/3 भाग निवेश किया। A, B और C के लाभ के हिस्सों का क्रमशः अनुपात क्या है?

(1) 3 : 4 : 5
(2) 2 : 3 : 5
(3) 1 : 3 : 5
(4) 3 : 5 : 7 ✔

Q.51 Study the following table and answer the question based on it.
Expenditures of a company (in lakh rupees) per annum over the given years Year Item of Expenditure Salary Fuel and Transport Bonus Interest on Loans Taxes 2001 242 126 292 327 64 2002 284 56 436 201 78 2003 328 100 182 364 60 2004 326 58 237 262 80 2005 332 136 338 444 108 What is the average amount of interest (in lakh rupees) per year which the company had to pay during this period?

निम्नलिखित तालिका का अध्ययन करें और उसके आधार पर प्रश्न का उत्तर दें।
दिए गए वर्षों में एक कंपनी के प्रति वर्ष व्यय (लाख रुपये में) वर्ष व्यय की मद वेतन ईंधन और परिवहन बोनस ऋणों पर ब्याज कर 2001 242 126 292 327 64 2002 284 56 436 201 78 2003 328 100 182 364 60 2004 326 58 237 262 80 2005 332 136 338 444 108 इस अवधि के दौरान कंपनी को प्रति वर्ष ब्याज की कितनी औसत राशि (लाख रुपये में) का भुगतान करना पड़ा?

(1) 319.6 ✔
(2) 252.1
(3) 287.5
(4) 322.4

Q.52 A teacher has two batches of students. In Batch A, the average score is 84, and in Batch B, the average score is 78. If the number of students in Batch A is twice the number of students in Batch B, what is the combined average score of all students?

एक शिक्षक के पास विद्यार्थियों के दो बैच हैं। बैच A में, औसत अंक 84 है, और बैच B में, औसत अंक 78 है। यदि बैच A में विद्यार्थियों की संख्या बैच B में विद्यार्थियों की संख्या की दोगुनी है, तो सभी विद्यार्थियों का संयुक्त औसत अंक क्या है?

(1) 80
(2) 81
(3) 79
(4) 82 ✔

Q.53 A shopkeeper claims to sell sugar at the cost price, but he uses a false weight. He gives only 800 g of sugar to the customer while charging for 1 kg. What is his gain percentage?

एक दुकानदार क्रय मूल्य पर चीनी बेचने का दावा करता है, लेकिन वह एक गलत बाट का उपयोग करता है। वह 1 kg का मूल्य लेते हुए ग्राहक को केवल 800 g चीनी देता है। उसका लाभ प्रतिशत क्या है?

(1) 40%
(2) 25% ✔
(3) 30%
(4) 20%

Q.54 An Uber cab covers a distance of 867 km in 17 hours. What is its speed (in km/hr)?

एक उबर कैब 17 घंटे में 867 km की दूरी तय करती है। इसकी चाल (km/hr में) क्या है?

(1) 60
(2) 49
(3) 55
(4) 51 ✔

Q.55 Find the cube root of 0.003375/0.004913.

0.003375/0.004913 का घनमूल ज्ञात कीजिए।

(1) 13/17
(2) 17/15
(3) 12/17
(4) 15/17 ✔

Q.56 A wholesaler offers a trade scheme of “Buy 4, get 1 free” on an article whose marked price is ₹800 per unit. In addition, a cash discount of 10% is allowed on the payable amount after applying the scheme. If a retailer purchases 10 such articles under this offer, then find the effective discount percentage obtained by the retailer on the total marked price.

एक थोक विक्रेता एक वस्तु पर “4 खरीदें, 1 मुफ्त पाएँ” की व्यापार योजना प्रस्तुत करता है, जिसका अंकित मूल्य ₹800 प्रति इकाई है। इसके अतिरिक्त, योजना लागू करने के बाद देय राशि पर 10% की नकद छूट दी जाती है। यदि एक खुदरा विक्रेता इस प्रस्ताव के अंतर्गत ऐसी 10 वस्तुएँ खरीदता है, तो कुल अंकित मूल्य पर खुदरा विक्रेता द्वारा प्राप्त प्रभावी छूट प्रतिशत ज्ञात करें।

(1) 27%
(2) 30%
(3) 28% ✔
(4) 29%

Q.57 A and B can complete a piece of work in 14 days and 24 days respectively. The work left after A has worked alone for 4 days, is

A और B किसी काम को क्रमशः 14 दिन और 24 दिन में पूरा कर सकते हैं। A द्वारा अकेले 4 दिन काम करने के बाद शेष काम कितना है?

(1) 13/7

(2) 5/7 ✔

(3) 6/7

(4) 1/7

Q.58 Rodney invested ₹57,500 in a bank. In two years how much compound interest (in ₹) will he get, considering annual compounding, if the rate of interest for the first year was 6% per annum and the rate for the second year was 2% per annum more than the first year?

रॉडनी ने एक बैंक में ₹57,500 का निवेश किया। वार्षिक चक्रवृद्धि मानते हुए, दो वर्षों में उसे कितना चक्रवृद्धि ब्याज (₹ में) प्राप्त होगा, यदि पहले वर्ष के लिए ब्याज दर 6% वार्षिक थी और दूसरे वर्ष के लिए दर पहले वर्ष से 2% वार्षिक अधिक थी?

(1) 8,126

(2) 7,976

(3) 8,326 ✔

(4) 8,576

Q.59 By selling 24 mangoes for ₹400, a man loses 20%. How many mangoes should he sell for ₹100 so as to gain 20% profit?

₹400 में 24 आम बेचने पर, एक व्यक्ति को 20% की हानि होती है। 20% लाभ प्राप्त करने के लिए उसे ₹100 में कितने आम बेचने चाहिए?

(1) 3

(2) 2

(3) 5

(4) 4 ✔

Q.60 If the radius of a cone is 48 cm and the height is 63 cm, find its volume.
(Use π = 22/7)

यदि एक शंकु की त्रिज्या 48 cm और ऊँचाई 63 cm है, तो उसका आयतन ज्ञात करें।
(π = 22/7 का उपयोग कीजिए)

(1) 1,52,064 cm^3 ✔

(2) 1,50,624 cm^3

(3) 1,50,064 cm^3

(4) 1,50,264 cm^3

English Language and Comprehension

Q.61 Select the option that is the most appropriate antonym of the underlined word in the given sentence.
He displayed an obstinate refusal to compromise on his principles.

(1) implied

(2) emphatic

(3) compliant ✔

(4) categorical

Q.62 Choose the correct option to complete the sentence.
The scholarship will cover expenses _____ a maximum of ₹50,000 for each selected student.

(1) across
(2) apart from
(3) instead of
(4) **up to ✔**

Q.63 Parts of a sentence are given below in jumbled order. Arrange the parts in the correct order to form a meaningful sentence.
(O) in rhythmic beats (P) with his cane tapping (Q) along the cobbled street (R) against the stones (S) the old man walked slowly

(1) OPQRS
(2) **SQPRO ✔**
(3) POQRS
(4) QPORS

Q.64 Choose the option that contains the misspelt word.

(1) Conscientious
(2) Meticulous
(3) Idiosyncrasy
(4) **Perserverance ✔**

Q.65 Choose the correct option to complete the sentence.
The debate focused on the benefits of online learning _____ traditional classroom education.

(1) among
(2) across
(3) **versus ✔**
(4) besides

Q.66 In the following question a statement has been given with highlighted text. You are required to replace the text with the correct idiom from the given alternatives. After being cheated by his new business partner once, Mahesh now invests his money very cautiously because he has become overly careful due to a past bad experience.

(1) Look before you leap
(2) All that glitters is not gold
(3) **Once bitten, twice shy ✔**
(4) A bird in hand is worth two in the bush

Quick Sarkari

Q.67 In the given question, a statement is divided into different segments. The first segment (S1) is fixed, rearrange the other segments to form a coherent statement. S1. Paper money
A. making it a form of currency
B. often referred to as a note or a bill
C. that is payable to the bearer on demand
D. is a type of negotiable promissory note

(1) S1-D-B-A-C
(2) S1-A-C-D-B
(3) S1-C-A-B-D
(4) **S1-B-D-C-A ✔**

Q.68 Choose the correct option to complete the sentence.
Priya's handwriting is very _____.

(1) dusty
(2) **neat ✔**
(3) expensive
(4) wooden

Q.69 Select the most appropriate article to fill in the blank. If no article is required, select 'No article required'.
She looked out of the window and saw _____ sun setting behind the hills.

(1) an
(2) No article required
(3) **the ✔**
(4) a

Q.70 Identify the correct proverb that can replace the underlined phrase in the sentence below.
Even though she has many talents, she fails to succeed because she tries to do too many things at the same time and ends up finishing none.

(1) a stitch in time saves nine
(2) birds of a feather flock together
(3) **she is a jack of all trades, master of none ✔**
(4) actions speak louder than words

Q.71 Select the most appropriate article to fill in the blank. If no article is needed, select 'No article required'.
Roxy is _____ wonderful dog.

(1) the
(2) **a ✔**
(3) an
(4) No article required

Q.72 Select the option that is the most appropriate antonym of the highlighted word in the given sentence.
The tranquil lake was a perfect place for meditation.

(1) defunct
(2) muffled
(3) **roaring ✔**
(4) sulky

Q.73 Select the most appropriate option that can substitute the underlined words in the given sentence.
He may think over deeply over the fate of empires which have always fallen because of some weakness.

(1) muse ✔
(2) accomplish
(3) seduce
(4) bereave

Q.74 Choose the correctly spelled word that replaces the misspelled word in the sentence below:
The manager's conscientous decision to accommodate the supplication of the differently abled employee surprised the entire committee.

(1) conscientious ✔
(2) suplication
(3) acommodate
(4) comittee

Q.75 Select the option that can be used as a one-word substitute for the given group of words.
A government run by a king or queen

(1) Democracy
(2) Oligarchy
(3) Monarchy ✔
(4) Republic

Q.76

Read the given passage and answer the questions that follow.
In the struggle for India's independence, few movements were as powerful as the Salt Satyagraha. Led by Mahatma Gandhi in 1930, this nonviolent protest was a direct challenge to British rule and their oppressive salt laws. At the time, the British controlled the production and taxation of salt, making it illegal for Indians to collect or sell it. This simple necessity became a symbol of colonial exploitation, and Gandhi decided to resist.
On 12 March 1930, Gandhi, along with 78 followers, set out on a 240-mile march from his ashram in Sabarmati to the coastal village of Dandi. As they walked, thousands joined them, transforming the march into a national movement. On 6 April, Gandhi reached the seashore and picked up a handful of salt—defying British law. This act of civil disobedience sparked mass protests across India, with people making and selling salt illegally.
The British responded with brutal force, arresting over 60,000 people, including Gandhi himself. But the movement had already shaken the empire. The Salt Satyagraha proved that nonviolence could be a powerful weapon against oppression and inspired freedom struggles worldwide. It was a turning point in India's journey to independence.

What was the main objective of the Salt Satyagraha?

(1) To promote industrial development in India
(2) To protest the British control over salt production and taxation ✔
(3) To demand the right to vote for Indians
(4) To fight for better wages for workers

Q.77

Read the given passage and answer the questions that follow.
In the struggle for India's independence, few movements were as powerful as the Salt Satyagraha. Led by Mahatma Gandhi in 1930, this nonviolent protest was a direct challenge to British rule and their oppressive salt laws. At the time, the British controlled the production and taxation of salt, making it illegal for Indians to collect or sell it. This simple necessity became a symbol of colonial exploitation, and Gandhi decided to resist.
On 12 March 1930, Gandhi, along with 78 followers, set out on a 240-mile march from his ashram in Sabarmati to the coastal village of Dandi. As they walked, thousands joined them, transforming the march into a national movement. On 6 April, Gandhi reached the seashore and picked up a handful of salt—defying British law. This act of civil disobedience sparked mass protests across India, with people making and selling salt illegally.
The British responded with brutal force, arresting over 60,000 people, including Gandhi himself. But the movement had already shaken the empire. The Salt Satyagraha proved that nonviolence could be a powerful weapon against oppression and inspired freedom struggles worldwide. It was a turning point in India's journey to independence.

What did the British do in response to the Salt Satyagraha?

(1) They ignored the protests and took no action.
(2) They allowed Indians to freely produce salt.
(3) They immediately lifted the salt tax.
(4) They arrested over 60,000 people, including Gandhi. ✔

Q.78

Read the given passage and answer the questions that follow.
In the struggle for India's independence, few movements were as powerful as the Salt Satyagraha. Led by Mahatma Gandhi in 1930, this nonviolent protest was a direct challenge to British rule and their oppressive salt laws. At the time, the British controlled the production and taxation of salt, making it illegal for Indians to collect or sell it. This simple necessity became a symbol of colonial exploitation, and Gandhi decided to resist.
On 12 March 1930, Gandhi, along with 78 followers, set out on a 240-mile march from his ashram in Sabarmati to the coastal village of Dandi. As they walked, thousands joined them, transforming the march into a national movement. On 6 April, Gandhi reached the seashore and picked up a handful of salt—defying British law. This act of civil disobedience sparked mass protests across India, with people making and selling salt illegally.
The British responded with brutal force, arresting over 60,000 people, including Gandhi himself. But the movement had already shaken the empire. The Salt Satyagraha proved that nonviolence could be a powerful weapon against oppression and inspired freedom struggles worldwide. It was a turning point in India's journey to independence.

Why did Gandhi pick up salt at Dandi?

(1) To show that salt production was a natural right
(2) To express defiance against British salt laws ✔
(3) To prove his leadership in the independence movement
(4) To set an example for the masses to follow

Q.79

Read the given passage and answer the questions that follow.
In the struggle for India's independence, few movements were as powerful as the Salt Satyagraha. Led by Mahatma Gandhi in 1930, this nonviolent protest was a direct challenge to British rule and their oppressive salt laws. At the time, the British controlled the production and taxation of salt, making it illegal for Indians to collect or sell it. This simple necessity became a symbol of colonial exploitation, and Gandhi decided to resist.
On 12 March 1930, Gandhi, along with 78 followers, set out on a 240-mile march from his ashram in Sabarmati to the coastal village of Dandi. As they walked, thousands joined them, transforming the march into a national movement. On 6 April, Gandhi reached the seashore and picked up a handful of salt—defying British law. This act of civil disobedience sparked mass protests across India, with people making and selling salt illegally.
The British responded with brutal force, arresting over 60,000 people, including Gandhi himself. But the movement had already shaken the empire. The Salt Satyagraha proved that nonviolence could be a powerful weapon against oppression and inspired freedom struggles worldwide. It was a turning point in India's journey to independence.

Select the most appropriate ANTONYM of 'oppressive' as used in the passage.

(1) Just ✔
(2) Cruel
(3) Brutal
(4) Harsh

Q.80

Read the given passage and answer the questions that follow.
In the struggle for India's independence, few movements were as powerful as the Salt Satyagraha. Led by Mahatma Gandhi in 1930, this nonviolent protest was a direct challenge to British rule and their oppressive salt laws. At the time, the British controlled the production and taxation of salt, making it illegal for Indians to collect or sell it. This simple necessity became a symbol of colonial exploitation, and Gandhi decided to resist.
On 12 March 1930, Gandhi, along with 78 followers, set out on a 240-mile march from his ashram in Sabarmati to the coastal village of Dandi. As they walked, thousands joined them, transforming the march into a national movement. On 6 April, Gandhi reached the seashore and picked up a handful of salt—defying British law. This act of civil disobedience sparked mass protests across India, with people making and selling salt illegally.
The British responded with brutal force, arresting over 60,000 people, including Gandhi himself. But the movement had already shaken the empire. The Salt Satyagraha proved that nonviolence could be a powerful weapon against oppression and inspired freedom struggles worldwide. It was a turning point in India's journey to independence.

What is the overall tone of the passage?

(1) Inspirational and reflective
(2) Indifferent and detached
(3) Humorous and lighthearted
(4) Angry and confrontational ✔

QuickSarkari.com | WhatsApp Channel | Telegram: t.me/quick_sarkari

Hindi Language and Comprehension

Q.81 "शिक्षक____ छात्रों____ पाठ पढ़ाया।" रिक्त स्थान की पूर्ति उचित कारक से करें।

(1) ने, को ✔
(2) पर, को
(3) से, से
(4) को, के

Q.82 'उतरा घाटी हुआ माटी' लोकोक्तिका सही अर्थ क्या होगा?

(1) कार्य सम्पन्न हो जाने पर एहसान भूल जाना ✔
(2) पठारों से मैदान में भाग आना
(3) पहाड़ी परिवेश से घृणा करना
(4) पर्वतारोही हो जाना

Q.83 सभी ने चित्रकार की कला की प्रशंसा की।
वाक्य में प्रयुक्त प्रशंसा शब्द का विलोम क्या है?

(1) दीर्घकाय
(2) त्याज्य
(3) परिमित
(4) भर्त्सना ✔

Q.84 निम्नलिखित वाक्य के रेखांकित शब्द का पर्यायवाची कौन-सा नहीं है?
'आज एक महात्मा द्वार पर भिक्षा के लिए आए।'

(1) महापुरुष
(2) महानुभाव
(3) महाशय
(4) आदमी ✔

Q.85 निम्नलिखित वाक्य के रिक्त स्थान में उचित क्रिया शब्द का प्रयोग करें - 'राहुल को रोज दूध पड़ता है।'

(1) पीना ✔
(2) खाना
(3) पी
(4) पीता

Q.86 उपयुक्त विशेषण का चयन कर वाक्य को पूर्ण कीजिए।
साक्षी का .....उज्ज्वल है।

(1) भविष्य ✔
(2) पिछला
(3) पुराना
(4) प्राचीन

Q.87 निम्नलिखित वाक्य को उचित कारक चिह्न से पूर्ण करें।
'अंशु स्कूल _____ आई है। '

(1) पर
(2) को
(3) से ✔
(4) के द्वारा

Q.88 निम्नलिखित वाक्य में रेखांकित शब्द के पर्यायवाची शब्द का चयन दिए गए विकल्पों में से कीजिए- जंगल में 'मोर' नाचा किसने देखा?

(1) केकी ✔
(2) पिक
(3) कपोत
(4) अम्बर

Q.89 दिए गए वाक्यों में से वर्तनी की दृष्टि से शुद्ध वाक्य का चयन कीजिए।

(1) पूर्णिमा के चाँद देखे।
(2) पूर्णिमा का चाँद देखें। ✔
(3) पुर्णिमा का चाँद देखें।
(4) पूर्णिमा का चाद देखें।

Q.90 उपयुक्त 'कारक' चिह्न का चयन कर रिक्त स्थान की पूर्ति कीजिए।
'राहुल साइकिल .....गिर पड़ा।'

(1) ने
(2) के
(3) से ✔
(4) में

Q.91 'घर का दीपक बुझ जाना' मुहावरे का सही अर्थ क्या होगा ?

(1) निर्वंश हो जाना ✔
(2) कलह करना
(3) अलग हो जाना
(4) अमर्यादित व्यवहार करना

Q.92 निम्नलिखित वाक्य में रेखांकित शब्द के पर्यायवाची शब्द का चयन दिए गए विकल्पों में से कीजिए- गर्मियों में 'सूर्य' तपता है।

(1) हिमांशु
(2) रत्नाकर
(3) सरिता
(4) दिवाकर ✔

Q.93 दिए गये वाक्यांश के लिए निम्नलिखित विकल्पों में से सार्थक शब्द का चयन करें- जो ओज एवं तेज से परिपूर्ण हो

(1) ओंकार
(2) ओजस्वी ✔
(3) ओझल
(4) औरस

Q.94 'जो कठिनाई से मिलता हो'
उपर्युक्त वाक्यांश के लिए एक सार्थक शब्द चुनें –

(1) दुर्लभ ✔
(2) दुर्भेद्य
(3) कमतर
(4) आसक्त

Q.95 निम्नलिखित वाक्य के रेखांकित शब्द का विलोम बताएं - 'इस कार्य को करने के लिए बहुत परिश्रम की आवश्यकता है।'

(1) विश्राम ✔

(2) मेहनत

(3) प्रयास

(4) सफलता

Q.96

निम्नलिखित गद्यांश के आधार पर प्रश्नों के उत्तर दें - जिस व्यक्ति के आदर्श[1] उच्च होते हैं, उसके विचार स्वतः ही उच्च हो जाते हैं। उच्च[2] विचार वाले व्यक्ति ही आगे चलकर विश्व का नेतृत्व कर पाते हैं। अब सबसे बड़ा प्रश्न है कि सादगी वास्तव में है क्या?क्या रहन-सहन और वेशभूषा संबंधी मानक ही सादगी को परिभाषित करने के लिए पर्याप्त हैं? इसका उत्तर है नहीं, क्योंकि इनके आधार[3] पर सादगी को समझना काफी नहीं है। ऊपरी तौर पर देखा जाए तो रहन-सहन, खान-पान, पहनावे, कार्य-पद्धति आदि को सादगीपूर्ण जीवन के अंतर्गत शामिल किया जाता है, परंतु सादगी एक व्यापक[4] विषय है या कहें कि एक प्रकार से जीवन जीने की शैली है। किसी प्रकार के आडंबर[5] को अपनाए बिना जीवन जीना ही सादगी है,फिर चाहे वह रहन-सहन हो या कार्य- शैली।

गद्यांश के रेखांकित शब्द 1 का पर्यायवाची नहीं कौन-सा नहीं है?

(1) नमूना

(2) मानक

(3) प्रतिमान

(4) यथार्थ ✔

Q.97

निम्नलिखित गद्यांश के आधार पर प्रश्नों के उत्तर दें - जिस व्यक्ति के आदर्श[1] उच्च होते हैं, उसके विचार स्वतः ही उच्च हो जाते हैं। उच्च[2] विचार वाले व्यक्ति ही आगे चलकर विश्व का नेतृत्व कर पाते हैं। अब सबसे बड़ा प्रश्न है कि सादगी वास्तव में है क्या?क्या रहन-सहन और वेशभूषा संबंधी मानक ही सादगी को परिभाषित करने के लिए पर्याप्त हैं? इसका उत्तर है नहीं, क्योंकि इनके आधार[3] पर सादगी को समझना काफी नहीं है। ऊपरी तौर पर देखा जाए तो रहन-सहन, खान-पान, पहनावे, कार्य-पद्धति आदि को सादगीपूर्ण जीवन के अंतर्गत शामिल किया जाता है, परंतु सादगी एक व्यापक[4] विषय है या कहें कि एक प्रकार से जीवन जीने की शैली है। किसी प्रकार के आडंबर[5] को अपनाए बिना जीवन जीना ही सादगी है,फिर चाहे वह रहन-सहन हो या कार्य- शैली।

गद्यांश के रेखांकित शब्द 2 का विलोम कौन-सा नहीं है?

(1) ऊपर ✔

(2) नीचा

(3) अनुच्च

(4) निम्न

Q.98

निम्नलिखित गद्यांश के आधार पर प्रश्नों के उत्तर दें - जिस व्यक्ति के आदर्श[1] उच्च होते हैं, उसके विचार स्वतः ही उच्च हो जाते हैं। उच्च[2] विचार वाले व्यक्ति ही आगे चलकर विश्व का नेतृत्व कर पाते हैं। अब सबसे बड़ा प्रश्न है कि सादगी वास्तव में है क्या?क्या रहन-सहन और वेशभूषा संबंधी मानक ही सादगी को परिभाषित करने के लिए पर्याप्त हैं? इसका उत्तर है नहीं, क्योंकि इनके आधार[3] पर सादगी को समझना काफी नहीं है। ऊपरी तौर पर देखा जाए तो रहन-सहन, खान-पान, पहनावे, कार्य-पद्धति आदि को सादगीपूर्ण जीवन के अंतर्गत शामिल किया जाता है, परंतु सादगी एक व्यापक[4] विषय है या कहें कि एक प्रकार से जीवन जीने की शैली है। किसी प्रकार के आडंबर[5] को अपनाए बिना जीवन जीना ही सादगी है,फिर चाहे वह रहन-सहन हो या कार्य- शैली।

गद्यांश के रेखांकित शब्द 3 का पर्यायवाची कौन-सा नहीं है?

(1) अवलंब
(2) **नूतन ✔**
(3) बुनियाद
(4) सहारा

Q.99

निम्नलिखित गद्यांश के आधार पर प्रश्नों के उत्तर दें - जिस व्यक्ति के आदर्श[1] उच्च होते हैं, उसके विचार स्वतः ही उच्च हो जाते हैं। उच्च[2] विचार वाले व्यक्ति ही आगे चलकर विश्व का नेतृत्व कर पाते हैं। अब सबसे बड़ा प्रश्न है कि सादगी वास्तव में है क्या?क्या रहन-सहन और वेशभूषा संबंधी मानक ही सादगी को परिभाषित करने के लिए पर्याप्त हैं? इसका उत्तर है नहीं, क्योंकि इनके आधार[3] पर सादगी को समझना काफी नहीं है। ऊपरी तौर पर देखा जाए तो रहन-सहन, खान-पान, पहनावे, कार्य-पद्धति आदि को सादगीपूर्ण जीवन के अंतर्गत शामिल किया जाता है, परंतु सादगी एक व्यापक[4] विषय है या कहें कि एक प्रकार से जीवन जीने की शैली है। किसी प्रकार के आडंबर[5] को अपनाए बिना जीवन जीना ही सादगी है,फिर चाहे वह रहन-सहन हो या कार्य- शैली।

गद्यांश के रेखांकित शब्द 4 का अर्थ कौन-सा है ?

(1) संकुचित
(2) सिकुड़ना
(3) **फैला हुआ ✔**
(4) अविस्तृत

Q.100

निम्नलिखित गद्यांश के आधार पर प्रश्नों के उत्तर दें - जिस व्यक्ति के आदर्श[1] उच्च होते हैं, उसके विचार स्वतः ही उच्च हो जाते हैं। उच्च[2] विचार वाले व्यक्ति ही आगे चलकर विश्व का नेतृत्व कर पाते हैं। अब सबसे बड़ा प्रश्न है कि सादगी वास्तव में है क्या?क्या रहन-सहन और वेशभूषा संबंधी मानक ही सादगी को परिभाषित करने के लिए पर्याप्त हैं? इसका उत्तर है नहीं, क्योंकि इनके आधार[3] पर सादगी को समझना काफी नहीं है। ऊपरी तौर पर देखा जाए तो रहन-सहन, खान-पान, पहनावे, कार्य-पद्धति आदि को सादगीपूर्ण जीवन के अंतर्गत शामिल किया जाता है, परंतु सादगी एक व्यापक[4] विषय है या कहें कि एक प्रकार से जीवन जीने की शैली है। किसी प्रकार के आडंबर[5] को अपनाए बिना जीवन जीना ही सादगी है,फिर चाहे वह रहन-सहन हो या कार्य- शैली।

गद्यांश के रेखांकित शब्द 5 का विलोम बताएं -

(1) बनावट
(2) अनावश्यक
(3) दिखावा
(4) **सादगी ✔**

Assistant Teacher (Primary) – PRT

Q.101 Which activity best demonstrates fine motor development in young children?
छोटे बच्चों में सूक्ष्म गामक विकास को कौन-सी गतिविधि सबसे अच्छी तरह प्रदर्शित करती है?

(1) Kicking a ball / गेंद को किक मारना
(2) **Tying shoelaces / जूते के फीते बाँधना ✔**
(3) Jumping rope / रस्सी कूदना
(4) Running / दौड़ना

Q.102 What is the primary focus of peace education?
शांति शिक्षा का प्राथमिक फोकस क्या है?

(1) Economic growth / आर्थिक संवृद्धि
(2) Curriculum evaluation / पाठ्यचर्या मूल्यांकन
(3) Expansion of conflict / संघर्ष का विस्तार
(4) **Promoting harmony / सद्भाव को बढ़ावा देना ✔**

Q.103 The primary objective of the phrase "Justice, social, economic and political" in the Preamble to the Constitution of India is to establish a framework for what?
भारत के संविधान की उद्देशिका में "सामाजिक, आर्थिक और राजनैतिक न्याय" वाक्यांश का प्राथमिक उद्देश्य किसके लिए एक रूपरेखा स्थापित करना है?

(1) Guaranteeing equal outcomes for every individual / प्रत्येक व्यक्ति के लिए समान परिणामों की गारंटी देना
(2) Promoting religious uniformity among people / लोगों के बीच धार्मिक समरूपता को बढ़ावा देना
(3) **Establishing a welfare state and removing structural inequalities / एक कल्याणकारी राज्य की स्थापना करना और संरचनात्मक विषमताओं को दूर करना ✔**
(4) Maintaining equal distribution of wealth among all citizens of society / समाज के सभी नागरिकों के बीच समान धन वितरण बनाए रखना

Q.104 In a 5-year-old child who demonstrates proficient tower-building with blocks but exhibits difficulties catching a ball, this discrepancy most likely reflects which of the following?
एक 5 वर्षीय बच्चा, जो ब्लॉकों से मीनार बनाने में दक्षता प्रदर्शित करता है, लेकिन गेंद पकड़ने में कठिनाई प्रदर्शित करता है, उसमें यह विसंगति सबसे अधिक संभावित रूप से निम्नलिखित में से किसे दर्शाती है?

(1) Delays in both gross and fine motor skill domains / स्थूल और सूक्ष्म गामक कौशल, दोनों क्षेत्रों में विलंब
(2) **Typical uneven development across distinct motor skill areas / विभिन्न गामक कौशल क्षेत्रों में सामान्य असमान विकास ✔**
(3) Deficiency in symbolic reasoning capacity / प्रतीकात्मक तर्क क्षमता में कमी
(4) Delay in cognitive and language abilities / संज्ञानात्मक और भाषायी क्षमताओं में विलंब

Q.105 Educational Sociology is mainly concerned with the systematic study of:
शैक्षिक समाजशास्त्र मुख्य रूप से किसके व्यवस्थित अध्ययन से संबंधित है?

(1) Economic growth and national development / आर्थिक संवृद्धि और राष्ट्रीय विकास
(2) Administrative and political control of educational systems / शैक्षिक प्रणालियों का प्रशासनिक और राजनीतिक नियंत्रण
(3) **Social activities, institutions, and processes influencing education / शिक्षा को प्रभावित करने वाली सामाजिक गतिविधियाँ, संस्थाएँ और प्रक्रियाएँ ✔**
(4) Individual psychological development of learners / शिक्षार्थियों का व्यक्तिगत मनोवैज्ञानिक विकास

Q.106 What did the Preamble of the Indian Constitution declare India to be?

भारतीय संविधान की उद्देशिका ने भारत को क्या घोषित किया?

(1) Socialist, Secular, Democratic Republic / समाजवादी, पंथनिरपेक्ष, लोकतंत्रात्मक गणराज्य

(2) **Sovereign, Socialist, Democratic Nation / संप्रभु, समाजवादी, लोकतंत्रात्मक राष्ट्र ✔**

(3) Unitary, Parliamentary, Constitutional State / एकात्मक, संसदीय, संवैधानिक राज्य

(4) Federal, Secular, Republican Government / संघीय, पंथनिरपेक्ष, गणतांत्रिक सरकार

Q.107 During adolescence, which social development is most prominent?

किशोरावस्था के दौरान, कौन-सा सामाजिक विकास सबसे प्रमुख होता है?

(1) Developing trust / विश्वास विकसित करना

(2) Working in teams / टीमों में काम करना

(3) Building attachment / लगाव विकसित करना

(4) **Forming a sense of identity / पहचान की भावना का निर्माण करना ✔**

Q.108 A curriculum designer is selecting age-appropriate activities for 6-8-year-old children. Which combination best reflects their typical motor abilities?

एक पाठ्यचर्या निर्माता 6-8 वर्ष के बच्चों के लिए आयु-उपयुक्त गतिविधियों का चयन कर रहा है।
कौन-सा संयोजन उनकी सामान्य गामक क्षमताओं को सबसे अच्छी तरह दर्शाता है?

(1) Drawing person with 2 body parts and crawling / शरीर के 2 अंगों वाले व्यक्ति का चित्र बनाना और घुटनों के बल चलना

(2) **Riding a bicycle and tying shoelaces loosely / साइकिल चलाना और जूते के फीते ढीले बाँधना ✔**

(3) Standing unsupported and stacking 2 blocks / बिना सहारे के खड़े होना और 2 ब्लॉकों को एक के ऊपर एक रखना

(4) Keyboard proficiency and intricate crafts / कीबोर्ड पर दक्षता और जटिल शिल्पकला

Q.109 Which approach best integrates peace education into the curriculum for long-term student transformation?

विद्यार्थियों के दीर्घकालिक रूपांतरण के लिए कौन-सा दृष्टिकोण शांति शिक्षा को पाठ्यचर्या में सबसे अच्छी तरह एकीकृत करता है?

(1) Conducting annual peace rallies / वार्षिक शांति रैलियों का आयोजन करना

(2) Offering peace education only as an extracurricular activity / शांति शिक्षा को केवल एक पाठ्येतर गतिविधि के रूप में प्रदान करना

(3) Focusing solely on conflict resolution workshops / केवल संघर्ष समाधान कार्यशालाओं पर ध्यान केंद्रित करना

(4) **Embedding peace values across all subjects and activities / सभी विषयों और गतिविधियों में शांति मूल्यों को समाहित करना ✔**

Q.110 Which statement best captures the role of culture in socialization?

कौन-सा कथन समाजीकरण में संस्कृति की भूमिका को सबसे अच्छी तरह व्यक्त करता है?

(1) Culture functions independently of social processes / संस्कृति सामाजिक प्रक्रियाओं से स्वतंत्र रूप से कार्य करती है

(2) **Culture provides the framework / संस्कृति रूपरेखा प्रदान करती है ✔**

(3) Culture changes only through biological adaptation / संस्कृति केवल जैविक अनुकूलन के माध्यम से बदलती है

(4) Culture is irrelevant to learning social norms / सामाजिक मानदंडों को सीखने में संस्कृति अप्रासंगिक है

Q.111 What does the term 'Secular' in the Preamble signify for the Indian state?

उद्देशिका में 'पंथनिरपेक्ष' शब्द भारतीय राज्य के लिए क्या दर्शाता है?

(1) **State treats religions equally. / राज्य सभी धर्मों के साथ समान व्यवहार करता है। ✔**

(2) The state follows a single religion. / राज्य एक ही धर्म का पालन करता है।

(3) The state promotes only indigenous religions. / राज्य केवल स्वदेशी धर्मों को बढ़ावा देता है।

(4) The state restricts religious freedom. / राज्य धार्मिक स्वतंत्रता को प्रतिबंधित करता है।

Q.112 According to Kohlberg's theory, which stage is characterized by children obeying rules to avoid punishment?

कोहलबर्ग के सिद्धांत के अनुसार, किस अवस्था की विशेषता यह है कि बच्चे दंड से बचने के लिए नियमों का पालन करते हैं?

(1) Autonomous stage / स्वायत्त अवस्था

(2) **Pre-conventional stage / पूर्व-परंपरागत अवस्था ✔**

(3) Conventional stage / परंपरागत अवस्था

(4) Post-conventional stage / उत्तर-परंपरागत अवस्था

Q.113 Which of the following best exemplifies a learner-centered approach in curriculum development?

निम्नलिखित में से कौन-सा पाठ्यचर्या विकास में शिक्षार्थी-केंद्रित दृष्टिकोण का सबसे अच्छा उदाहरण है?

(1) Preparing learners primarily for social roles and responsibilities / शिक्षार्थियों को मुख्य रूप से सामाजिक भूमिकाओं और उत्तरदायित्वों के लिए तैयार करना

(2) Organising content mainly around traditional subjects / विषय-वस्तु को मुख्य रूप से पारंपरिक विषयों के आधार पर व्यवस्थित करना

(3) Delivering fixed content with standardised assessments / मानकीकृत आकलनों के साथ निश्चित विषय-वस्तु प्रदान करना

(4) **Shaping lessons by student interests and involvement / विद्यार्थियों की रुचियों और सहभागिता के अनुसार पाठों को आकार देना ✔**

Q.114 Which aspect most significantly characterizes the hierarchical structure of Indian society?

कौन-सा पहलू भारतीय समाज की पदानुक्रमित संरचना की सबसे महत्वपूर्ण विशेषता है?

(1) Religious uniformity across regions / सभी क्षेत्रों में धार्मिक एकरूपता

(2) Linguistic plurality as the sole determinant / एकमात्र निर्धारक के रूप में भाषायी बहुलता

(3) Complete cultural homogeneity / पूर्ण सांस्कृतिक समरूपता

(4) **Caste and class divisions are deeply embedded. / जाति और वर्ग विभाजन गहराई से समाहित हैं। ✔**

Q.115 A middle school student begins questioning family beliefs after discussions with friends and adapts some of his views based on peer suggestions. What does this scenario best represent in the context of social and emotional development?

माध्यमिक विद्यालय का एक विद्यार्थी मित्रों के साथ चर्चा करने के बाद पारिवारिक मान्यताओं पर प्रश्न उठाना शुरू कर देता है और साथियों के सुझावों के आधार पर अपने कुछ विचारों को बदल लेता है। सामाजिक और संवेगात्मक विकास के संदर्भ में यह परिदृश्य सबसे अच्छी तरह किसे दर्शाता है?

(1) Attachment behavior in infancy. / शैशवावस्था में लगाव व्यवहार।

(2) Empathy development in toddlerhood. / प्रारंभिक बाल्यावस्था (टॉडलरहुड) में समानुभूति का विकास।

(3) **Peer influence on beliefs in middle childhood. / मध्य बाल्यावस्था में मान्यताओं पर साथियों का प्रभाव। ✔**

(4) Initiative in group play during preschool years. / पूर्व-विद्यालयी वर्षों के दौरान सामूहिक खेल में पहल।

Q.116 Which of the following is not a principle of development?

निम्नलिखित में से कौन-सा विकास का सिद्धांत नहीं है?

(1) Continuity / निरंतरता

(2) **Sequentially / क्रमिकता ✔**

(3) Specific to general / विशिष्ट से सामान्य

(4) Differentiality / विभेदीकरण

Q.117 How does the principle of justice in the Preamble influence educational policies in India?
उद्देशिका में न्याय का सिद्धांत भारत की शैक्षिक नीतियों को किस प्रकार प्रभावित करता है?

(1) It restricts education to only certain social groups / यह शिक्षा को केवल कुछ सामाजिक समूहों तक सीमित करता है
(2) It mandates religious instruction as compulsory in all schools / यह सभी विद्यालयों में धार्मिक शिक्षा को अनिवार्य बनाता है
(3) It prioritizes military training over academic education / यह शैक्षणिक शिक्षा की तुलना में सैन्य प्रशिक्षण को प्राथमिकता देता है
(4) It encourages equal opportunities for all students regardless of background / यह पृष्ठभूमि की परवाह किए बिना सभी विद्यार्थियों के लिए समान अवसरों को प्रोत्साहित करता है ✓

Q.118 In a classroom where students from diverse backgrounds learn together, which constitutional value is most directly promoted?
ऐसी कक्षा में जहाँ विविध पृष्ठभूमि के विद्यार्थी एक साथ सीखते हैं, कौन-सा संवैधानिक मूल्य सबसे प्रत्यक्ष रूप से बढ़ावा पाता है?

(1) Sovereignty / संप्रभुता
(2) Fraternity / बंधुत्व ✓
(3) Equality / समानता
(4) Liberty / स्वतंत्रता

Q.119 According to Piaget's theory, which stage is characterized by the development of object permanence?
पियाजे के सिद्धांत के अनुसार, किस अवस्था की विशेषता वस्तु स्थायित्व का विकास है?

(1) Concrete operational stage / मूर्त संक्रियात्मक अवस्था
(2) Sensorimotor stage / संवेदी-गामक अवस्था ✓
(3) Formal operational stage / औपचारिक संक्रियात्मक अवस्था
(4) Preoperational stage / पूर्व-संक्रियात्मक अवस्था

Q.120 Which of the following was a primary recommendation of the University Education Commission (Radha Krishnan Commission) of 1948-49 regarding university education in India?
भारत में विश्वविद्यालयी शिक्षा के संबंध में 1948-49 के विश्वविद्यालय शिक्षा आयोग (राधाकृष्णन आयोग) की प्रमुख सिफारिश निम्नलिखित में से कौन-सी थी?

(1) Emphasizing teaching and research to promote national development / राष्ट्रीय विकास को बढ़ावा देने के लिए शिक्षण और अनुसंधान पर बल देना ✓
(2) Introducing compulsory vocational training at the school level / विद्यालय स्तर पर अनिवार्य व्यावसायिक प्रशिक्षण आरंभ करना
(3) Centralizing all universities under direct central control / सभी विश्वविद्यालयों को प्रत्यक्ष केंद्रीय नियंत्रण में केंद्रीकृत करना
(4) Making university education free for all enrolled students / सभी नामांकित विद्यार्थियों के लिए विश्वविद्यालयी शिक्षा को निःशुल्क बनाना

Q.121 Which of the following best describes a common pattern of behaviour in groups?
निम्नलिखित में से कौन-सा समूहों में व्यवहार के एक सामान्य प्रतिरूप का सबसे अच्छा वर्णन करता है?

(1) Everyone works separately with no interaction / सभी बिना किसी अंतःक्रिया के अलग-अलग काम करते हैं
(2) Members often share roles and responsibilities / सदस्य प्रायः भूमिकाओं और उत्तरदायित्वों को साझा करते हैं ✓
(3) Only one person makes all decisions / केवल एक व्यक्ति ही सभी निर्णय लेता है
(4) Members avoid communicating with each other / सदस्य एक-दूसरे से संवाद करने से बचते हैं

Q.122 What is the key purpose of peer tutoring in the classroom?

कक्षा में सहपाठी शिक्षण (पीयर ट्यूटरिंग) का मुख्य उद्देश्य क्या है?

(1) Students read silently without discussion / विद्यार्थी बिना चर्चा के मौन पठन करते हैं

(2) Students listen passively to the teacher / विद्यार्थी निष्क्रिय रूप से शिक्षक को सुनते हैं

(3) Students help each other understand concepts / विद्यार्थी अवधारणाओं को समझने में एक-दूसरे की सहायता करते हैं ✔

(4) Students work individually without interaction / विद्यार्थी बिना अंतःक्रिया के व्यक्तिगत रूप से काम करते हैं

Q.123 The maxim "From Concrete to Abstract" is most effective because concrete experiences:

सूत्र "मूर्त से अमूर्त की ओर" सबसे प्रभावी है क्योंकि मूर्त अनुभव:

(1) Appeal to sensory understanding and remain longer in memory / संवेदी समझ को आकर्षित करते हैं और स्मृति में अधिक समय तक बने रहते हैं ✔

(2) Reduce the need for physical materials in early grades / प्रारंभिक कक्षाओं में भौतिक सामग्री की आवश्यकता को कम करते हैं

(3) Make abstract thinking unnecessary in higher classes / उच्च कक्षाओं में अमूर्त चिंतन को अनावश्यक बना देते हैं

(4) Promote imagination without the need for real objects / वास्तविक वस्तुओं की आवश्यकता के बिना कल्पना को बढ़ावा देते हैं

Q.124 A preschool child learns new words naturally by listening and interacting during play. This is an example of:

पूर्व-विद्यालयी आयु का एक बच्चा खेल के दौरान सुनकर और अंतःक्रिया करके स्वाभाविक रूप से नए शब्द सीखता है।
यह किसका उदाहरण है?

(1) Rote-memorization through reading the content / विषय-वस्तु पढ़कर रटकर याद करना

(2) Language acquisition in pre-school years / पूर्व-विद्यालयी वर्षों में भाषा अर्जन ✔

(3) Drilling of vocabulary / शब्दावली का अभ्यास (ड्रिलिंग)

(4) Formal grammar instruction / औपचारिक व्याकरण शिक्षण

Q.125 Which of the following steps comes first when preparing a lesson plan?

पाठ योजना तैयार करते समय निम्नलिखित में से कौन-सा चरण सबसे पहले आता है?

(1) Conducting classroom activities / कक्षा गतिविधियों का संचालन करना

(2) Selecting teaching aids / शिक्षण सहायक सामग्री का चयन करना

(3) Identifying learning objectives / अधिगम उद्देश्यों की पहचान करना ✔

(4) Evaluating student performance / विद्यार्थियों के प्रदर्शन का मूल्यांकन करना

Q.126 A curriculum committee is revising science instruction to better reflect the evolving nature of pedagogy. Which modification would most accurately apply contemporary concepts of pedagogical practice to real classroom settings?

एक पाठ्यचर्या समिति शिक्षाशास्त्र की विकसित होती प्रकृति को बेहतर ढंग से प्रतिबिंबित करने के लिए विज्ञान शिक्षण में संशोधन कर रही है। कौन-सा संशोधन शैक्षणिक अभ्यास की समकालीन अवधारणाओं को वास्तविक कक्षा परिवेश में सबसे सटीक रूप से लागू करेगा?

(1) Imposing fixed instructional frameworks independent of learner development patterns / शिक्षार्थी के विकास प्रतिरूपों से स्वतंत्र, निश्चित शिक्षण ढाँचे थोपना

(2) Restricting experimental work to standardized procedures outlined in official manuals / प्रायोगिक कार्य को आधिकारिक नियमावलियों में उल्लिखित मानकीकृत प्रक्रियाओं तक सीमित करना

(3) Embedding adaptive, inquiry-driven investigations responsive to emergent student reasoning / विद्यार्थियों के उभरते तर्क के प्रति अनुक्रियाशील, अनुकूलनीय, जिज्ञासा-आधारित अन्वेषणों को समाहित करना ✔

(4) Maintaining uniform reliance on traditionally codified instructional sequences / पारंपरिक रूप से संहिताबद्ध शिक्षण अनुक्रमों पर एकसमान निर्भरता बनाए रखना

Q.127 A study examining Mindfulness-Based Stress Reduction (MBSR) for secondary teachers showed significant stress reduction. Which MBSR process component is primarily applied to transform impulsive reactivity?

माध्यमिक शिक्षकों के लिए माइंडफुलनेस-आधारित तनाव न्यूनीकरण (MBSR) की जाँच करने वाले एक अध्ययन में तनाव में उल्लेखनीय कमी देखी गई। आवेगपूर्ण प्रतिक्रियाशीलता को रूपांतरित करने के लिए मुख्य रूप से MBSR प्रक्रिया के किस घटक को लागू किया जाता है?

(1) Focusing attention regulation / ध्यान विनियमन पर केंद्रित करना

(2) Developing bodily awareness skills / शारीरिक जागरूकता कौशल विकसित करना

(3) Enhancing emotional regulation / संवेगात्मक विनियमन को बढ़ाना ✔

(4) Transforming static self-perception / स्थिर आत्म-बोध को रूपांतरित करना

Q.128 What is a key characteristic of the preoperational stage in Piaget's theory related to mathematics learning?

गणित अधिगम से संबंधित पियाजे के सिद्धांत में पूर्व-संक्रियात्मक अवस्था की एक प्रमुख विशेषता क्या है?

(1) Children perform complex mental calculations / बच्चे जटिल मानसिक गणनाएँ करते हैं

(2) Children think abstractly about numbers / बच्चे संख्याओं के बारे में अमूर्त रूप से सोचते हैं

(3) Children use symbols but struggle with logical operations / बच्चे प्रतीकों का उपयोग करते हैं लेकिन तार्किक संक्रियाओं में कठिनाई अनुभव करते हैं ✔

(4) Children easily understand conservation of number / बच्चे संख्या के संरक्षण को आसानी से समझ लेते हैं

Q.129 How does the preamble to the Constitution of UNESCO relate to the role of education in shaping society's mindset?

यूनेस्को (UNESCO) के संविधान की प्रस्तावना समाज की मानसिकता को आकार देने में शिक्षा की भूमिका से किस प्रकार संबंधित है?

(1) It recommends military alliances among nations / यह राष्ट्रों के बीच सैन्य गठबंधनों की सिफारिश करती है

(2) It emphasizes constructing peace in minds through education / यह शिक्षा के माध्यम से मन में शांति के निर्माण पर बल देती है ✔

(3) It mandates economic reforms for world unity / यह विश्व एकता के लिए आर्थिक सुधारों को अनिवार्य करती है

(4) It focuses on technological advancement for all / यह सभी के लिए तकनीकी उन्नति पर ध्यान केंद्रित करती है

Q.130 How can including family input enhance the comprehensive assessment of a child's language and early literacy development?

परिवार के योगदान को शामिल करने से बच्चे के भाषा और प्रारंभिक साक्षरता विकास के व्यापक आकलन को किस प्रकार बेहतर बनाया जा सकता है?

(1) Family replaces the teacher's role in assessment / आकलन में परिवार शिक्षक की भूमिका का स्थान ले लेता है

(2) **Family input provides context beyond school experiences / परिवार का योगदान विद्यालयी अनुभवों से परे संदर्भ प्रदान करता है ✔**

(3) Family focuses only on correcting the child's language mistakes / परिवार केवल बच्चे की भाषा संबंधी गलतियों को सुधारने पर ध्यान केंद्रित करता है

(4) Family has more knowledge about language learning / परिवार को भाषा अधिगम के बारे में अधिक ज्ञान होता है

Q.131 A pre-school teacher records a 4-year-old saying "I runned fast" but correctly saying "She brought the flowers". This consistent grammatical deviation primarily indicates the child is engaging in:

एक पूर्व-विद्यालयी शिक्षक 4 वर्षीय बच्चे को "I runned fast" कहते हुए, लेकिन "She brought the flowers" सही ढंग से कहते हुए रिकॉर्ड करता है। यह निरंतर व्याकरणिक विचलन मुख्य रूप से इंगित करता है कि बच्चा:

(1) Responding to positive reinforcement / सकारात्मक पुनर्बलन के प्रति अनुक्रिया कर रहा है

(2) Imitating adult speech models / वयस्कों के भाषण प्रतिरूपों का अनुकरण कर रहा है

(3) Selective memory retention failure / चयनात्मक स्मृति धारण में विफल हो रहा है

(4) **Applying productive morpheme rules / उत्पादक रूपिम नियमों को लागू कर रहा है ✔**

Q.132 Priya, a student-teacher, notices that over several weeks of journaling, her entries reveal a shift from self-doubt to increased confidence in her teaching abilities. Which aspect of reflective journal writing is illustrated in Priya's experience?

प्रिया, एक छात्र-शिक्षिका, देखती है कि कई सप्ताहों तक जर्नल लिखने के दौरान उसकी प्रविष्टियाँ उसकी शिक्षण क्षमताओं के प्रति आत्म-संदेह से बढ़े हुए आत्मविश्वास की ओर बदलाव को दर्शाती हैं। प्रिया के अनुभव में चिंतनशील जर्नल लेखन का कौन-सा पहलू दर्शाया गया है?

(1) **Developmental nature shown over time / समय के साथ प्रदर्शित विकासात्मक प्रकृति ✔**

(2) Immediate emotional expression / तात्कालिक संवेगात्मक अभिव्यक्ति

(3) One-time incident analysis / एक बार की घटना का विश्लेषण

(4) Focus on external feedback / बाहरी प्रतिपुष्टि पर ध्यान केंद्रित करना

Q.133 Which of the following options best demonstrates the application of 'learning to observe' in enhancing self-understanding during group interactions?

निम्नलिखित में से कौन-सा विकल्प समूह अंतःक्रियाओं के दौरान आत्म-समझ को बढ़ाने में 'अवलोकन करना सीखने' के अनुप्रयोग को सबसे अच्छी तरह प्रदर्शित करता है?

(1) Observing others' body language to predict their responses / दूसरों की अनुक्रियाओं का पूर्वानुमान लगाने के लिए उनकी शारीरिक भाषा का अवलोकन करना

(2) **Observing and reflecting on own emotions / अपने स्वयं के संवेगों का अवलोकन करना और उन पर चिंतन करना ✔**

(3) Listening carefully to others' opinions without personal reflection / व्यक्तिगत चिंतन के बिना दूसरों के विचारों को ध्यानपूर्वक सुनना

(4) Focusing on achieving group objectives without distraction / बिना विचलित हुए समूह के उद्देश्यों को प्राप्त करने पर ध्यान केंद्रित करना

Q.134 Bloom's Evaluation approach shifts planning emphasis from content flow to what central focus?
ब्लूम का मूल्यांकन उपागम योजना निर्माण के बल को विषय-वस्तु के प्रवाह से हटाकर किस केंद्रीय बिंदु पर स्थानांतरित करता है?

(1) Objective-centered teaching structure. / उद्देश्य-केंद्रित शिक्षण संरचना। ✔
(2) Content knowledge memorization. / विषय-वस्तु ज्ञान को रटना।
(3) Previous experience assimilation. / पूर्व अनुभव का आत्मसात्करण।
(4) Flexible resource incorporation. / लचीले संसाधनों का समावेश।

Q.135 What is a primary benefit of encouraging multilingualism in early childhood education?
प्रारंभिक बाल्यावस्था शिक्षा में बहुभाषिकता को प्रोत्साहित करने का एक प्रमुख लाभ क्या है?

(1) It eliminates the need for assessment in schools. / यह विद्यालयों में आकलन की आवश्यकता को समाप्त कर देती है।
(2) It makes learning mathematics easier for all students. / यह सभी विद्यार्थियों के लिए गणित सीखना आसान बना देती है।
(3) It promotes cognitive flexibility and cultural understanding. / यह संज्ञानात्मक लचीलेपन और सांस्कृतिक समझ को बढ़ावा देती है। ✔
(4) It ensures all children speak only the national language. / यह सुनिश्चित करती है कि सभी बच्चे केवल राष्ट्रीय भाषा बोलें।

Q.136 What is the primary change in the teacher's role when using multilingualism as a resource?
बहुभाषिकता को एक संसाधन के रूप में उपयोग करते समय शिक्षक की भूमिका में प्रमुख परिवर्तन क्या होता है?

(1) The teacher becomes the sole authority and knowledge-giver / शिक्षक एकमात्र प्राधिकारी और ज्ञान-दाता बन जाता है
(2) The teacher acts as an observer, facilitator, and learner / शिक्षक एक प्रेक्षक, सुविधादाता और शिक्षार्थी के रूप में कार्य करता है ✔
(3) The teacher eliminates the use of textbooks entirely / शिक्षक पाठ्यपुस्तकों के उपयोग को पूर्णतः समाप्त कर देता है
(4) The teacher only focuses on correcting errors / शिक्षक केवल त्रुटियों को सुधारने पर ध्यान केंद्रित करता है

Q.137 What is the primary purpose of maintaining reflective journals for teachers?
शिक्षकों के लिए चिंतनशील जर्नल बनाए रखने का प्रमुख उद्देश्य क्या है?

(1) To compile lesson plans for future classroom use / भविष्य में कक्षा में उपयोग के लिए पाठ योजनाओं को संकलित करना
(2) To document student behaviour and discipline issues / विद्यार्थियों के व्यवहार और अनुशासन संबंधी समस्याओं का दस्तावेजीकरण करना
(3) To monitor professional growth and self-development / व्यावसायिक विकास और आत्म-विकास की निगरानी करना ✔
(4) To record daily classroom events in detail / दैनिक कक्षा घटनाओं को विस्तार से दर्ज करना

Q.138 When examining the contemporary relevance of an iconic cultural figure, which factor is most important in understanding their sustained influence on society?
किसी प्रतिष्ठित सांस्कृतिक व्यक्तित्व की समकालीन प्रासंगिकता की जाँच करते समय, समाज पर उनके निरंतर प्रभाव को समझने में कौन-सा कारक सबसे महत्वपूर्ण है?

(1) The adaptability of their ideals to current issues / वर्तमान मुद्दों के प्रति उनके आदर्शों की अनुकूलनशीलता ✔
(2) The strict preservation of original customs / मूल रीति-रिवाजों का कठोर संरक्षण
(3) The absence of critique in modern discussions / आधुनिक चर्चाओं में आलोचना का अभाव
(4) The number of statues built in their honor / उनके सम्मान में बनाई गई प्रतिमाओं की संख्या

Q.139 In a multicultural society, a curriculum designer aims to enhance social cohesion by leveraging socialization. Which strategy most effectively addresses both the transmission of shared values and adaptation to diverse cultural backgrounds?

एक बहुसांस्कृतिक समाज में, एक पाठ्यचर्या निर्माता समाजीकरण का लाभ उठाकर सामाजिक सामंजस्य बढ़ाने का लक्ष्य रखता है। कौन-सी रणनीति साझा मूल्यों के संचरण और विविध सांस्कृतिक पृष्ठभूमियों के प्रति अनुकूलन, दोनों को सबसे प्रभावी ढंग से संबोधित करती है?

(1) Incorporating collaborative projects and intercultural peer interactions into lessons / पाठों में सहयोगात्मक परियोजनाओं और अंतर-सांस्कृतिक सहपाठी अंतःक्रियाओं को शामिल करना ✔

(2) Emphasizing subject-specific content without group activities / सामूहिक गतिविधियों के बिना विषय-विशिष्ट विषय-वस्तु पर बल देना

(3) Focusing on teacher-centered lectures and standardized testing methods / शिक्षक-केंद्रित व्याख्यानों और मानकीकृत परीक्षण विधियों पर ध्यान केंद्रित करना

(4) Integrating national symbols and traditional stories into textbooks / पाठ्यपुस्तकों में राष्ट्रीय प्रतीकों और पारंपरिक कहानियों को एकीकृत करना

Q.140 Why are bilingual children reported to have a smaller number of words in each language compared to monolinguals?

एकभाषी बच्चों की तुलना में द्विभाषी बच्चों के पास प्रत्येक भाषा में कम शब्द होने की बात क्यों कही जाती है?

(1) Because they have limited cognitive capacity. / क्योंकि उनकी संज्ञानात्मक क्षमता सीमित होती है।

(2) Because their vocabulary is distributed across two languages. / क्योंकि उनकी शब्दावली दो भाषाओं में वितरित होती है। ✔

(3) Because they learn fewer words overall. / क्योंकि वे कुल मिलाकर कम शब्द सीखते हैं।

(4) Because they struggle with language development. / क्योंकि उन्हें भाषा विकास में कठिनाई होती है।

Q.141 Which concept is defined as a social system where power is historically held by males, systematically disadvantaging women, and perpetuating unequal social relations?

किस अवधारणा को एक ऐसी सामाजिक व्यवस्था के रूप में परिभाषित किया जाता है जिसमें ऐतिहासिक रूप से सत्ता पुरुषों के पास रही है, जो व्यवस्थित रूप से महिलाओं को वंचित करती है और असमान सामाजिक संबंधों को बनाए रखती है?

(1) Matrilineal descent / मातृवंशीय वंश-परंपरा

(2) Egalitarian principle / समतावादी सिद्धांत

(3) Matriarchal structure / मातृसत्तात्मक संरचना

(4) Patriarchal system / पितृसत्तात्मक व्यवस्था ✔

Q.142 While finalizing a policy document, a team member writes, 'Employees should ensure he completes the training.' Which alternative best aligns with both grammatical correctness and modern appropriateness for professional communication?

एक नीति दस्तावेज़ को अंतिम रूप देते समय, टीम का एक सदस्य लिखता है, 'Employees should ensure he completes the training.' व्यावसायिक संप्रेषण के लिए कौन-सा विकल्प व्याकरणिक शुद्धता और आधुनिक उपयुक्तता, दोनों के साथ सबसे अच्छी तरह मेल खाता है?

(1) Employees should ensure they complete the training. ✔

(2) Each employee should ensure they completes the training.

(3) All employees should ensure he completes the training.

(4) Employees should ensure he completes the training.

Q.143 Why is it important for teachers to recognize their own biases before entering the classroom?
कक्षा में प्रवेश करने से पहले शिक्षकों के लिए अपने स्वयं के पूर्वाग्रहों को पहचानना क्यों महत्वपूर्ण है?

(1) To improve mastery of subject content / विषय-वस्तु पर दक्षता में सुधार करने के लिए

(2) **To prevent reinforcing social prejudices / सामाजिक पूर्वाग्रहों को सुदृढ़ होने से रोकने के लिए ✔**

(3) To maintain classroom discipline / कक्षा अनुशासन बनाए रखने के लिए

(4) To speed up lesson planning / पाठ योजना निर्माण में तेज़ी लाने के लिए

Q.144 How does the concept of readiness affect children's learning in elementary classrooms?
तत्परता की अवधारणा प्रारंभिक कक्षाओं में बच्चों के अधिगम को किस प्रकार प्रभावित करती है?

(1) **Children learn best when they are developmentally prepared / बच्चे तब सबसे अच्छा सीखते हैं जब वे विकासात्मक रूप से तैयार होते हैं ✔**

(2) Children learn best when forced to memorize information quickly / बच्चे तब सबसे अच्छा सीखते हैं जब उन्हें जानकारी को शीघ्रता से याद करने के लिए विवश किया जाता है

(3) Children learn best when given only theoretical instruction / बच्चे तब सबसे अच्छा सीखते हैं जब उन्हें केवल सैद्धांतिक शिक्षण दिया जाता है

(4) Children learn best when they imitate their classmates / बच्चे तब सबसे अच्छा सीखते हैं जब वे अपने सहपाठियों का अनुकरण करते हैं

Q.145 In linguistic research on vocabulary acquisition, what fundamentally distinguishes active vocabulary from passive vocabulary in terms of depth of knowledge required for effective use?
शब्दावली अर्जन पर भाषा वैज्ञानिक अनुसंधान में, प्रभावी उपयोग के लिए आवश्यक ज्ञान की गहराई के संदर्भ में सक्रिय शब्दावली को निष्क्रिय शब्दावली से मूल रूप से क्या अलग करता है?

(1) Passive vocabulary prioritizes rote memorization for output whereas active focuses solely on receptive exposure without productive application demands / निष्क्रिय शब्दावली अभिव्यक्ति के लिए रटने को प्राथमिकता देती है, जबकि सक्रिय शब्दावली उत्पादक अनुप्रयोग की माँगों के बिना केवल ग्रहणशील अनावरण पर ध्यान केंद्रित करती है

(2) Both types equally emphasize immediate retrieval speed, differing only in frequency of auditory input rather than engagement level or skill application / दोनों प्रकार तात्कालिक पुनःस्मरण गति पर समान रूप से बल देते हैं, और केवल श्रवण इनपुट की आवृत्ति में भिन्न होते हैं, न कि संलग्नता के स्तर या कौशल अनुप्रयोग में

(3) Active vocabulary demands minimal contextual recognition while passive requires exhaustive recall for spontaneous production in varied communicative scenarios / सक्रिय शब्दावली में न्यूनतम प्रासंगिक पहचान की आवश्यकता होती है, जबकि निष्क्रिय शब्दावली में विभिन्न संप्रेषण परिदृश्यों में स्वतःस्फूर्त अभिव्यक्ति के लिए व्यापक पुनःस्मरण की आवश्यकता होती है

(4) **Active vocabulary involves confident production in speech or writing with full mastery of meaning, usage, and pronunciation beyond mere comprehension / सक्रिय शब्दावली में केवल बोध से आगे बढ़कर, अर्थ, प्रयोग और उच्चारण पर पूर्ण दक्षता के साथ वाचन या लेखन में आत्मविश्वासपूर्ण अभिव्यक्ति शामिल होती है ✔**

Q.146 What is a key feature of the lecture method of teaching mathematics?
गणित शिक्षण की व्याख्यान विधि की एक प्रमुख विशेषता क्या है?

(1) Students conduct experiments / विद्यार्थी प्रयोग करते हैं

(2) Students play mathematical games / विद्यार्थी गणितीय खेल खेलते हैं

(3) Students actively participate / विद्यार्थी सक्रिय रूप से भाग लेते हैं

(4) **Students remain passive listeners / विद्यार्थी निष्क्रिय श्रोता बने रहते हैं ✔**

Q.147 How does an Advanced Teacher differ from a Proficient Teacher, according to the National Professional Standards for Teachers?

शिक्षकों के लिए राष्ट्रीय व्यावसायिक मानकों के अनुसार, एक उन्नत शिक्षक (Advanced Teacher) एक प्रवीण शिक्षक (Proficient Teacher) से किस प्रकार भिन्न होता है?

(1) Advanced Teachers have minimal interaction with other stakeholders / उन्नत शिक्षकों की अन्य हितधारकों के साथ न्यूनतम अंतःक्रिया होती है

(2) Advanced Teachers do not prefer to reflect on learner contexts / उन्नत शिक्षक शिक्षार्थी के संदर्भों पर चिंतन करना पसंद नहीं करते

(3) Advanced Teachers apply new curricular content to address diverse needs / उन्नत शिक्षक विविध आवश्यकताओं को पूरा करने के लिए नई पाठ्यचर्या विषय-वस्तु लागू करते हैं ✔

(4) Advanced Teachers focus mainly on textbook and syllabus completion / उन्नत शिक्षक मुख्य रूप से पाठ्यपुस्तक और पाठ्यक्रम को पूरा करने पर ध्यान केंद्रित करते हैं

Q.148 In pedagogical leadership, who primarily fosters positive school culture?

शैक्षणिक नेतृत्व में, मुख्य रूप से सकारात्मक विद्यालयी संस्कृति को कौन बढ़ावा देता है?

(1) School leader / विद्यालय प्रमुख ✔

(2) Student council / छात्र परिषद

(3) Instructional coach / अनुदेशनात्मक प्रशिक्षक

(4) Administrative staff / प्रशासनिक कर्मचारी

Q.149 When building a school from scratch, why is teacher identity important for shaping school culture?

शुरुआत से एक विद्यालय का निर्माण करते समय, विद्यालयी संस्कृति को आकार देने के लिए शिक्षक की पहचान क्यों महत्वपूर्ण है?

(1) Models values and behaviors / मूल्यों और व्यवहारों का आदर्श प्रस्तुत करती है ✔

(2) Teacher identity requires the use of uniforms / शिक्षक की पहचान के लिए वर्दी का उपयोग आवश्यक है

(3) Teacher identity sets the school timetable / शिक्षक की पहचान विद्यालय की समय-सारणी निर्धारित करती है

(4) Teacher identity determines classroom size / शिक्षक की पहचान कक्षा का आकार निर्धारित करती है

Q.150 A teacher designs a lesson where students solve problems collaboratively, considering each learner's background and abilities. Which principle of effective pedagogy is best demonstrated here?

एक शिक्षक एक ऐसा पाठ तैयार करता है जिसमें विद्यार्थी प्रत्येक शिक्षार्थी की पृष्ठभूमि और क्षमताओं को ध्यान में रखते हुए सहयोगात्मक रूप से समस्याओं को हल करते हैं। यहाँ प्रभावी शिक्षाशास्त्र का कौन-सा सिद्धांत सबसे अच्छी तरह प्रदर्शित होता है?

(1) Relying on student self-efficacy alone / केवल विद्यार्थी की आत्म-प्रभावकारिता पर निर्भर रहना

(2) Differentiation based on multiple learning factors / अनेक अधिगम कारकों पर आधारित विभेदीकरण ✔

(3) Exclusive focus on environmental resources / केवल पर्यावरणीय संसाधनों पर ध्यान केंद्रित करना

(4) Uniform instruction for all students / सभी विद्यार्थियों के लिए एकसमान शिक्षण

QuickSarkari.com | WhatsApp Channel | Telegram: t.me/quick_sarkari

Q.151 Which of the following statements correctly distinguishes classical conditioning from trial-and-error learning?

निम्नलिखित में से कौन-सा कथन, शास्त्रीय अनुबंधन को प्रयास-और-त्रुटि अधिगम से सही तरह से अलग करता है?

(1) Classical conditioning requires conscious reasoning to correct errors, whereas trial-and-error involves automatic reflexes. / शास्त्रीय अनुबंधन में त्रुटियों को सुधारने के लिए चेतन तर्क की आवश्यकता होती है, जबकि प्रयास-और-त्रुटि में स्वचालित प्रतिवर्त शामिल हैं।

(2) Classical conditioning depends on voluntary actions to achieve goals, whereas trial-and-error is entirely a reflexive response. / शास्त्रीय अनुबंधन लक्ष्यों को प्राप्त करने के लिए स्वैच्छिक क्रियाओं पर निर्भर करता है, जबकि प्रयास-और-त्रुटि पूर्णत: प्रतिवर्ती अनुक्रिया है।

(3) Classical conditioning involves establishing an association between stimuli, whereas trial-and-error depends on repeated attempts to solve a problem. / शास्त्रीय अनुबंधन में उद्दीपन के बीच संबंध स्थापित करना शामिल होता है, जबकि प्रयास-और-त्रुटि किसी समस्या को हल करने के लिए बार-बार प्रयास करने पर निर्भर होता है। ✓

(4) Classical conditioning and trial-and-error learning have the same approach and there is no difference in their application. / शास्त्रीय अनुबंधन तथा प्रयास-और-त्रुटि अधिगम का उपागम एकसमान है और इनके अनुप्रयोग में कोई अंतर नहीं है।

Q.152 Which outcome best reflects the goal of developing a positive attitude toward mathematics in primary school?

प्राथमिक विद्यालय में गणित के प्रति सकारात्मक दृष्टिकोण विकसित करने के लक्ष्य को कौन-सा परिणाम सबसे अच्छी तरह दर्शाता है?

(1) A student avoids asking questions / एक विद्यार्थी प्रश्न पूछने से बचता है

(2) A student memorizes all formulas / एक विद्यार्थी सभी सूत्रों को याद कर लेता है

(3) A student enjoys learning math / एक विद्यार्थी गणित सीखने का आनंद लेता है ✓

(4) A student always finishes math homework first / एक विद्यार्थी हमेशा गणित का गृहकार्य सबसे पहले पूरा करता है

Q.153 Mr. Singh incorporates play-based, multilingual activities in his primary classroom, as recommended by NEP 2020. Which aspect of his professional responsibilities is he most directly addressing?

श्री सिंह, NEP 2020 की सिफारिश के अनुसार, अपनी प्राथमिक कक्षा में खेल-आधारित, बहुभाषी गतिविधियों को शामिल करते हैं। वे अपने व्यावसायिक उत्तरदायित्वों के किस पहलू को सबसे प्रत्यक्ष रूप से संबोधित कर रहे हैं?

(1) He is prioritizing administrative duties over classroom engagement. / वे कक्षा संलग्नता की तुलना में प्रशासनिक कर्तव्यों को प्राथमिकता दे रहे हैं।

(2) He is limiting his role to delivering lectures without interaction. / वे अपनी भूमिका को बिना अंतःक्रिया के व्याख्यान देने तक सीमित कर रहे हैं।

(3) He is promoting equity and adapting instruction to meet diverse learner needs. / वे समता को बढ़ावा दे रहे हैं और विविध शिक्षार्थी आवश्यकताओं को पूरा करने के लिए शिक्षण को अनुकूलित कर रहे हैं। ✓

(4) He is enforcing uniform teaching strategies for all students regardless of background. / वे पृष्ठभूमि की परवाह किए बिना सभी विद्यार्थियों के लिए एकसमान शिक्षण रणनीतियाँ लागू कर रहे हैं।

Q.154 A student attempts several ways to arrange blocks to form a stable tower. After multiple failed attempts, the child finally discovers a balanced structure. This learning reflects:

एक विद्यार्थी एक स्थिर मीनार बनाने के लिए ब्लॉकों को व्यवस्थित करने के कई तरीके आज़माता है। कई असफल प्रयासों के बाद, बच्चा अंततः एक संतुलित संरचना खोज लेता है। यह अधिगम दर्शाता है:

(1) Classical learning / शास्त्रीय अधिगम

(2) Insight learning / अंतर्दृष्टि अधिगम

(3) Trial-and-error learning / प्रयास-और-त्रुटि अधिगम ✓

(4) Observational learning / अवलोकनात्मक अधिगम

Q.155 If a student understands the word 'meticulous' when reading but never uses it while speaking, in which vocabulary is it included?

यदि कोई विद्यार्थी पढ़ते समय 'meticulous' शब्द को समझता है लेकिन बोलते समय कभी उसका उपयोग नहीं करता, तो यह किस शब्दावली में शामिल है?

(1) Technical vocabulary / तकनीकी शब्दावली

(2) Academic vocabulary / शैक्षणिक शब्दावली

(3) Active vocabulary / सक्रिय शब्दावली

(4) Passive vocabulary / निष्क्रिय शब्दावली ✔

Q.156 A teacher encourages students to find multiple solutions to one problem. This develops:

एक शिक्षक विद्यार्थियों को एक समस्या के अनेक हल खोजने के लिए प्रोत्साहित करता है। यह विकसित करता है:

(1) Rote memorization / रटकर याद करना

(2) Learning long definitions / लंबी परिभाषाएँ सीखना

(3) Developing reasoning / तर्क विकसित करना ✔

(4) Avoiding concrete materials / मूर्त सामग्री से बचना

Q.157 What does the suffix battle between '-ise' and '-ize' illustrate about English spelling?

'-ise' और '-ize' प्रत्ययों के बीच की प्रतिस्पर्धा अंग्रेज़ी वर्तनी के बारे में क्या दर्शाती है?

(1) The role of dictionaries in standardizing language / भाषा के मानकीकरण में शब्दकोशों की भूमिका

(2) The lack of absolutes in English language rules / अंग्रेज़ी भाषा के नियमों में निरपेक्षता का अभाव

(3) The influence of style guides on spelling / वर्तनी पर शैली मार्गदर्शिकाओं का प्रभाव

(4) The emergence of American English spellings / अमेरिकी अंग्रेज़ी वर्तनी का उद्भव ✔

Q.158 According to the teacher's roles, rights, and responsibilities in the modern context, how does a teacher contribute to raising awareness about community health?

आधुनिक संदर्भ में शिक्षक की भूमिकाओं, अधिकारों और उत्तरदायित्वों के अनुसार, एक शिक्षक सामुदायिक स्वास्थ्य के बारे में जागरूकता बढ़ाने में किस प्रकार योगदान देता है?

(1) Restricting communication with parents and family about health / स्वास्थ्य के बारे में माता-पिता और परिवार के साथ संवाद को प्रतिबंधित करना

(2) Focusing only on examination preparation and academic achievement / केवल परीक्षा की तैयारी और शैक्षणिक उपलब्धि पर ध्यान केंद्रित करना

(3) Limiting teaching responsibilities strictly to classroom academic instruction / शिक्षण उत्तरदायित्वों को कड़ाई से कक्षा के शैक्षणिक शिक्षण तक सीमित करना

(4) Teachers can provide information to students and parents on how to stay healthy / शिक्षक विद्यार्थियों और माता-पिता को स्वस्थ रहने के तरीकों के बारे में जानकारी प्रदान कर सकते हैं ✔

Q.159 Which role of a teacher involves analysing one's own teaching practices, experimenting with new methods, and continuously trying to improve professional skills?

शिक्षक की कौन-सी भूमिका में अपनी स्वयं की शिक्षण पद्धतियों का विश्लेषण करना, नई विधियों के साथ प्रयोग करना और व्यावसायिक कौशलों में सुधार के लिए निरंतर प्रयास करना शामिल है?

(1) Teacher as an Evaluator / मूल्यांकनकर्ता के रूप में शिक्षक

(2) Teacher as a Reflective Professional / चिंतनशील व्यवसायी के रूप में शिक्षक ✔

(3) Teacher as a Model / आदर्श के रूप में शिक्षक

(4) Teacher as a Counsellor / परामर्शदाता के रूप में शिक्षक

Q.160 What is the main focus of Pedagogical leadership in schools?

विद्यालयों में शैक्षणिक नेतृत्व का मुख्य केंद्रबिंदु क्या है?

(1) Managing school finances and maintaining the physical infrastructure only / केवल विद्यालय के वित्त का प्रबंधन और भौतिक अवसंरचना का रखरखाव करना

(2) Supervising administrative staff without involvement in classroom teaching / कक्षा शिक्षण में शामिल हुए बिना प्रशासनिक कर्मचारियों का पर्यवेक्षण करना

(3) Improving teaching practices and enhancing student learning outcomes effectively / शिक्षण पद्धतियों में सुधार करना और विद्यार्थियों के अधिगम परिणामों को प्रभावी ढंग से बढ़ाना ✔

(4) Organizing school events and extracurricular activities exclusively / विशेष रूप से विद्यालय के कार्यक्रमों और पाठ्येतर गतिविधियों का आयोजन करना

Q.161 In an upper primary lesson, students examine how local water scarcity influences daily routines and family dynamics. They use observation and interviews, then discuss possible solutions. Which scope and method combination is most evident here?

उच्च प्राथमिक स्तर के एक पाठ में, विद्यार्थी इस बात की जाँच करते हैं कि स्थानीय जल की कमी दैनिक दिनचर्या और पारिवारिक गतिशीलता को किस प्रकार प्रभावित करती है। वे अवलोकन और साक्षात्कार का उपयोग करते हैं, फिर संभावित समाधानों पर चर्चा करते हैं। यहाँ कौन-सा कार्यक्षेत्र और विधि संयोजन सबसे स्पष्ट है?

(1) Secondary: Specialized disciplines with debates and discussions / माध्यमिक: वाद-विवाद और चर्चाओं के साथ विशेषीकृत विषय

(2) Upper Primary: Social Science with observation and interviews / उच्च प्राथमिक: अवलोकन और साक्षात्कार के साथ सामाजिक विज्ञान ✔

(3) Primary: EVS with observation and classification methods / प्राथमिक: अवलोकन और वर्गीकरण विधियों के साथ EVS

(4) Higher Secondary: Career preparation and vocational training / उच्चतर माध्यमिक: करियर की तैयारी और व्यावसायिक प्रशिक्षण

Q.162 In the context of using community resources as low-cost teaching materials, which member would be most suitable for demonstrating measurement of length in construction using standard tools like a measuring tape and scale?

कम लागत वाली शिक्षण सामग्री के रूप में सामुदायिक संसाधनों के उपयोग के संदर्भ में, मापक फीता और स्केल जैसे मानक उपकरणों का उपयोग करके निर्माण कार्य में लंबाई के मापन का प्रदर्शन करने के लिए कौन-सा सदस्य सबसे उपयुक्त होगा?

(1) Tailor / दर्जी

(2) Carpenter / बढ़ई ✔

(3) Iron smith / लोहार

(4) Goldsmith / सुनार

Q.163 Which process involves reducing government control over education institutions?

किस प्रक्रिया में शिक्षण संस्थानों पर सरकारी नियंत्रण को कम करना शामिल है?

(1) Liberalization / उदारीकरण ✔

(2) Globalization / वैश्वीकरण

(3) Privatization / निजीकरण

(4) Centralization / केंद्रीकरण

Q.164 A primary English teacher wants to use ICT to encourage collaboration. Which strategy is most effective?

प्राथमिक स्तर का एक अंग्रेज़ी शिक्षक सहयोग को प्रोत्साहित करने के लिए ICT का उपयोग करना चाहता है। कौन-सी रणनीति सबसे प्रभावी है?

(1) Giving individual quizzes through ICT / ICT के माध्यम से व्यक्तिगत प्रश्नोत्तरी देना

(2) Showing lessons through video lectures / वीडियो व्याख्यानों के माध्यम से पाठ दिखाना

(3) **Using online platforms for group projects / सामूहिक परियोजनाओं के लिए ऑनलाइन प्लेटफ़ॉर्म का उपयोग करना ✔**

(4) Assigning reading with e-books / ई-पुस्तकों के साथ पठन कार्य देना

Q.165 Which of the following is an objective of Environmental Studies for children?

निम्नलिखित में से कौन-सा बच्चों के लिए पर्यावरण अध्ययन का एक उद्देश्य है?

(1) Learning a foreign language / एक विदेशी भाषा सीखना

(2) Cooking traditional food / पारंपरिक भोजन पकाना

(3) **Observation and Reporting / अवलोकन और प्रतिवेदन ✔**

(4) Playing video games / वीडियो गेम खेलना

Q.166 NGOs are particularly effective in schools when they:

गैर-सरकारी संगठन (NGOs) विद्यालयों में विशेष रूप से तब प्रभावी होते हैं जब वे:

(1) **Align their interventions with school goals / अपने हस्तक्षेपों को विद्यालय के लक्ष्यों के अनुरूप करते हैं ✔**

(2) Focus only on short-term measurable outputs / केवल अल्पकालिक मापनीय परिणामों पर ध्यान केंद्रित करते हैं

(3) Substitute teachers in regular classrooms / नियमित कक्षाओं में शिक्षकों का स्थान लेते हैं

(4) Operate independently of school leadership / विद्यालय नेतृत्व से स्वतंत्र रूप से कार्य करते हैं

Q.167 What is a key feature of pedagogical leadership in schools?

विद्यालयों में शैक्षणिक नेतृत्व की एक प्रमुख विशेषता क्या है?

(1) Decision-making authority / निर्णय लेने का अधिकार

(2) Infrastructure planning / अवसंरचना नियोजन

(3) Financial management / वित्तीय प्रबंधन

(4) **Focus on teaching quality / शिक्षण की गुणवत्ता पर ध्यान केंद्रित करना ✔**

Q.168 Which of the following languages was NOT originally taught using the Grammar Translation Method?

निम्नलिखित में से कौन-सी भाषा मूल रूप से व्याकरण-अनुवाद विधि का उपयोग करके नहीं पढ़ाई जाती थी?

(1) Latin / लैटिन

(2) Greek / ग्रीक

(3) Sanskrit / संस्कृत

(4) **Mandarin / मंदारिन ✔**

Q.169 Which of the following reflects a commonly recognised impact of globalisation on education?

निम्नलिखित में से कौन-सा शिक्षा पर वैश्वीकरण के एक सामान्य रूप से मान्य प्रभाव को दर्शाता है?

(1) Uniform teaching methods / एकसमान शिक्षण विधियाँ

(2) **Expansion of learner choices / शिक्षार्थी के विकल्पों का विस्तार ✔**

(3) Abolition of examinations / परीक्षाओं की समाप्ति

(4) Elimination of social inequalities / सामाजिक असमानताओं का उन्मूलन

Q.170 A teacher designs a field trip to a local nursery to link plant life cycle (Science) with traditional medicine preparation (Social Science). Which primary EVS theme is being applied?

एक शिक्षक पादप जीवन चक्र (विज्ञान) को पारंपरिक औषधि निर्माण (सामाजिक विज्ञान) से जोड़ने के लिए एक स्थानीय पौधशाला की क्षेत्र यात्रा की योजना बनाता है। कौन-सी प्रमुख EVS विषयवस्तु (थीम) लागू की जा रही है?

(1) Things We Make and Do / वस्तुएँ जो हम बनाते और करते हैं ✔

(2) Family and Friends / परिवार और मित्र

(3) Food / भोजन

(4) Travel / यात्रा

Q.171 In a lesson on 'Festivals of India,' a teacher starts by discussing local festivals, then introduces less familiar festivals from other regions, and finally asks students to identify common themes. Which principle of lesson planning does this illustrate?

'भारत के त्योहार' पर एक पाठ में, एक शिक्षक स्थानीय त्योहारों पर चर्चा से शुरुआत करता है, फिर अन्य क्षेत्रों के कम परिचित त्योहारों से परिचित कराता है, और अंत में विद्यार्थियों से सामान्य विषयों की पहचान करने के लिए कहता है। यह पाठ योजना के किस सिद्धांत को दर्शाता है?

(1) Integration: Links prior knowledge, skills/values. / एकीकरण: पूर्व ज्ञान, कौशलों/मूल्यों को जोड़ता है।

(2) Flexibility: Adaptable to class response. / लचीलापन: कक्षा की अनुक्रिया के अनुसार अनुकूलनीय।

(3) Psychological Sequence: Known-to-unknown, simple-complex. / मनोवैज्ञानिक क्रम: ज्ञात से अज्ञात, सरल से जटिल। ✔

(4) Comprehensive: Covers intro-body-closure, aids/assessment. / व्यापक: परिचय-मुख्य भाग-समापन, सहायक सामग्री/आकलन को शामिल करता है।

Q.172 Which function do textbooks primarily serve in the teaching-learning process?

शिक्षण-अधिगम प्रक्रिया में पाठ्यपुस्तकें मुख्य रूप से कौन-सा कार्य करती हैं?

(1) Limit curriculum flexibility / पाठ्यचर्या के लचीलेपन को सीमित करती हैं

(2) Replace teacher instruction / शिक्षक के शिक्षण का स्थान लेती हैं

(3) Provide structured content / संरचित विषय-वस्तु प्रदान करती हैं ✔

(4) Eliminate assessments / आकलनों को समाप्त करती हैं

Q.173 What is one benefit of gathering students' background knowledge before class?

कक्षा से पहले विद्यार्थियों के पूर्व ज्ञान को एकत्र करने का एक लाभ क्या है?

(1) It replaces the need for objectives. / यह उद्देश्यों की आवश्यकता का स्थान ले लेता है।

(2) It reduces student engagement. / यह विद्यार्थियों की संलग्नता को कम करता है।

(3) It delays the lesson. / यह पाठ में विलंब करता है।

(4) It helps to shape the introduction and activities. / यह प्रस्तावना और गतिविधियों को आकार देने में सहायता करता है। ✔

Q.174 A teacher integrates role-plays and brainstorming sessions, adjusting her lesson when students seem disengaged. What facilitation techniques is she primarily utilizing?

एक शिक्षिका भूमिका-निर्वाह और विचार-मंथन सत्रों को एकीकृत करती है, और जब विद्यार्थी असंलग्न प्रतीत होते हैं तो अपने पाठ में परिवर्तन करती है। वह मुख्य रूप से किन सुविधा तकनीकों का उपयोग कर रही है?

(1) Solo assignments and silent study periods / एकल कार्य और मौन अध्ययन अवधि

(2) Test-based assessment and grading / परीक्षा-आधारित आकलन और श्रेणीकरण

(3) Adaptability and engagement strategies / अनुकूलनशीलता और संलग्नता रणनीतियाँ ✔

(4) Fixed lecture format and content delivery / निश्चित व्याख्यान प्रारूप और विषय-वस्तु प्रस्तुति

Q.175 What is the main benefit of allowing students to revise their writing based on comments?
विद्यार्थियों को टिप्पणियों के आधार पर अपने लेखन को संशोधित करने की अनुमति देने का मुख्य लाभ क्या है?

(1) It reduces teacher workload / यह शिक्षक के कार्यभार को कम करता है
(2) It increases the word count / यह शब्द संख्या को बढ़ाता है
(3) It makes grading easier / यह श्रेणीकरण को आसान बनाता है
(4) **It supports internalising corrections / यह सुधारों को आत्मसात करने में सहायता करता है ✔**

Q.176 A teacher integrates stories, diagrams, and hands-on experiments while teaching EVS. This reflects:
एक शिक्षक EVS पढ़ाते समय कहानियों, आरेखों और प्रत्यक्ष प्रयोगों को एकीकृत करता है। यह दर्शाता है:

(1) **Scientific, integrated and inclusive approach / वैज्ञानिक, एकीकृत और समावेशी दृष्टिकोण ✔**
(2) Structured subject-centered methodology / संरचित विषय-केंद्रित कार्यप्रणाली
(3) Curriculum-aligned assessment focus / पाठ्यचर्या-संरेखित आकलन केंद्रबिंदु
(4) Multimodal content delivery strategy / बहुविध विषय-वस्तु प्रस्तुति रणनीति

Q.177 How do new social values such as equality and justice emerge in the modern social system?
आधुनिक सामाजिक व्यवस्था में समानता और न्याय जैसे नए सामाजिक मूल्य किस प्रकार उभरते हैं?

(1) By avoiding technological progress in the world / विश्व में तकनीकी प्रगति से बचकर
(2) From lack of diversity in choice of practices / प्रथाओं के चयन में विविधता के अभाव से
(3) Through outdated social customs of community / समुदाय के पुराने सामाजिक रीति-रिवाजों के माध्यम से
(4) **As outcomes of development and modernization / विकास और आधुनिकीकरण के परिणामस्वरूप ✔**

Q.178 Which skill is least developed when using the Grammar Translation Method in English teaching?
अंग्रेज़ी शिक्षण में व्याकरण-अनुवाद विधि का उपयोग करते समय कौन-सा कौशल सबसे कम विकसित होता है?

(1) Writing / लेखन
(2) Reading / पठन
(3) Listening / श्रवण
(4) **Speaking / वाचन ✔**

Q.179 Why might the Grammar-Translation Method be suitable for large or mixed-ability classes?
व्याकरण-अनुवाद विधि बड़ी या मिश्रित-क्षमता वाली कक्षाओं के लिए उपयुक्त क्यों हो सकती है?

(1) It focuses on speaking activities / यह वाचन गतिविधियों पर ध्यान केंद्रित करती है
(2) **It allows the teacher to explain concepts / यह शिक्षक को अवधारणाओं की व्याख्या करने की अनुमति देती है ✔**
(3) It prioritizes listening comprehension / यह श्रवण बोध को प्राथमिकता देती है
(4) It encourages student independence / यह विद्यार्थी की स्वतंत्रता को प्रोत्साहित करती है

Q.180 What is a key issue with evaluating students using only closed-ended questions?
केवल बंद-अंत प्रश्नों का उपयोग करके विद्यार्थियों का मूल्यांकन करने की एक प्रमुख समस्या क्या है?

(1) Reduces grading time / श्रेणीकरण के समय को कम करता है
(2) Improves communication skills / संप्रेषण कौशलों में सुधार करता है
(3) **Limits depth of response / अनुक्रिया की गहराई को सीमित करता है ✔**
(4) Encourages creativity / सृजनात्मकता को प्रोत्साहित करता है

Q.181 Which of the following activities is an example of recreational mathematics?

निम्नलिखित में से कौन-सी गतिविधि मनोरंजक गणित का एक उदाहरण है?

(1) Copying formulas from the textbook / पाठ्यपुस्तक से सूत्रों की नकल करना

(2) Rewriting multiplication tables repeatedly / पहाड़ों को बार-बार लिखना

(3) Listening to a lecture without interaction / बिना अंतःक्रिया के व्याख्यान सुनना

(4) Solving a Sudoku puzzle / सुडोकू पहेली हल करना ✔

Q.182 What is the smallest counting (natural) number?

सबसे छोटी गणन (प्राकृत) संख्या कौन-सी है?

(1) 0

(2) 1 ✔

(3) 2

(4) 3

Q.183 Which method involves reasoning from specific observations to general principles?

किस विधि में विशिष्ट अवलोकनों से सामान्य सिद्धांतों की ओर तर्क करना शामिल है?

(1) Hypothesis testing / परिकल्पना परीक्षण

(2) Inductive reasoning / आगमनात्मक तर्क ✔

(3) Verification / सत्यापन

(4) Deductive reasoning / निगमनात्मक तर्क

Q.184 A language teacher analyzes mid-semester quiz results, subsequently forming remedial groups and adjusting the pace of instruction. This utilization of evaluation data primarily serves which purpose?

एक भाषा शिक्षक मध्य-सत्र प्रश्नोत्तरी के परिणामों का विश्लेषण करता है, और तत्पश्चात उपचारात्मक समूह बनाता है तथा शिक्षण की गति में परिवर्तन करता है। मूल्यांकन आँकड़ों का यह उपयोग मुख्य रूप से किस उद्देश्य की पूर्ति करता है?

(1) Feedback for pedagogical change / शैक्षणिक परिवर्तन के लिए प्रतिपुष्टि ✔

(2) Measurement of learning extent / अधिगम की सीमा का मापन

(3) Numerical summary of achievement / उपलब्धि का संख्यात्मक सारांश

(4) Certification of terminal skill / अंतिम कौशल का प्रमाणन

Q.185 Which of the following best explains why science kits are considered essential in science education?

निम्नलिखित में से कौन-सा सबसे अच्छी तरह स्पष्ट करता है कि विज्ञान शिक्षा में विज्ञान किट को आवश्यक क्यों माना जाता है?

(1) They provide hands-on learning that connects theory to practice. / वे प्रत्यक्ष अधिगम प्रदान करती हैं जो सिद्धांत को व्यवहार से जोड़ता है। ✔

(2) They focus solely on increasing classroom discipline. / वे केवल कक्षा अनुशासन बढ़ाने पर ध्यान केंद्रित करती हैं।

(3) They only provide assessment tools for teachers. / वे केवल शिक्षकों के लिए आकलन उपकरण प्रदान करती हैं।

(4) They mainly improve communication skills. / वे मुख्य रूप से संप्रेषण कौशलों में सुधार करती हैं।

QuickSarkari.com | WhatsApp Channel | Telegram: t.me/quick_sarkari

Q.186 A science educator wants to foster scientific thinking by engaging students in an activity that requires them to generate hypotheses and then design experiments to test these ideas. Which teaching approach best exemplifies the nature of science education in this context?

एक विज्ञान शिक्षक विद्यार्थियों को एक ऐसी गतिविधि में संलग्न करके वैज्ञानिक चिंतन को बढ़ावा देना चाहता है, जिसमें उन्हें परिकल्पनाएँ बनानी हों और फिर इन विचारों का परीक्षण करने के लिए प्रयोगों की रूपरेखा तैयार करनी हो। इस संदर्भ में कौन-सा शिक्षण दृष्टिकोण विज्ञान शिक्षा की प्रकृति का सबसे अच्छा उदाहरण है?

(1) Inquiry-based experimentation with student input / विद्यार्थियों के योगदान के साथ जिज्ञासा-आधारित प्रयोग ✔

(2) Memorization of factual content / तथ्यात्मक विषय-वस्तु को याद करना

(3) Structured demonstration with teacher explanation / शिक्षक की व्याख्या के साथ संरचित प्रदर्शन

(4) Collaborative reading of textbook passages / पाठ्यपुस्तक के अंशों का सहयोगात्मक पठन

Q.187 What does using a checklist to assess pronunciation, vocabulary use, and fluency during a speech activity help ensure?

एक वाचन गतिविधि के दौरान उच्चारण, शब्दावली के उपयोग और प्रवाह का आकलन करने के लिए जाँच-सूची का उपयोग करना किसे सुनिश्चित करने में सहायता करता है?

(1) Systematic assessment / व्यवस्थित आकलन ✔

(2) Memorization of content / विषय-वस्तु को याद करना

(3) Random evaluation / यादृच्छिक मूल्यांकन

(4) Subjective judgment / व्यक्तिनिष्ठ निर्णय

Q.188 How can curriculum and classroom processes unintentionally reinforce gender stereotypes?

पाठ्यचर्या और कक्षा प्रक्रियाएँ अनजाने में लैंगिक रूढ़ियों को किस प्रकार सुदृढ़ कर सकती हैं?

(1) By including stories with diverse protagonists / विविध नायकों वाली कहानियों को शामिल करके

(2) By encouraging equal participation / समान भागीदारी को प्रोत्साहित करके

(3) By assigning roles based on traditional gender norms / पारंपरिक लैंगिक मानदंडों के आधार पर भूमिकाएँ सौंपकर ✔

(4) By promoting critical discussion of gender / जेंडर पर आलोचनात्मक चर्चा को बढ़ावा देकर

Q.189 Which of the following is an example of a "mathematical puzzle" commonly used in recreational teaching?

निम्नलिखित में से कौन-सा मनोरंजक शिक्षण में सामान्यतः उपयोग की जाने वाली "गणितीय पहेली" का एक उदाहरण है?

(1) A timed multiplication drill / समयबद्ध गुणा अभ्यास

(2) A standard classroom lecture / एक मानक कक्षा व्याख्यान

(3) A logic-based challenge like soduko / सुडोकू जैसी तर्क-आधारित चुनौती ✔

(4) A multiplayer board game like Monopoly / मोनोपॉली जैसा बहु-खिलाड़ी बोर्ड गेम

Q.190 If a person has both hearing and visual impairments causing severe communication problems, how is this condition classified under the RPwD Act, 2016?

यदि किसी व्यक्ति को श्रवण और दृष्टि, दोनों प्रकार की दिव्यांगता है, जिसके कारण गंभीर संप्रेषण समस्याएँ होती हैं, तो RPwD अधिनियम, 2016 के अंतर्गत इस स्थिति को किस रूप में वर्गीकृत किया जाता है?

(1) Cerebral Palsy / प्रमस्तिष्क पक्षाघात

(2) Specific Learning Disabilities / विशिष्ट अधिगम दिव्यांगता

(3) Speech and Language Disability / वाक् और भाषा दिव्यांगता

(4) Deaf Blindness / बहरा-अंधापन ✔

Q.191 How can teachers best address the needs of students with specific learning disabilities when designing assessments?

आकलन की रूपरेखा तैयार करते समय शिक्षक विशिष्ट अधिगम दिव्यांगता वाले विद्यार्थियों की आवश्यकताओं को सबसे अच्छी तरह कैसे संबोधित कर सकते हैं?

(1) Requiring only written examinations for evaluation / मूल्यांकन के लिए केवल लिखित परीक्षाओं की अपेक्षा रखना

(2) Expecting traditional essay-based answers exclusively / केवल पारंपरिक निबंध-आधारित उत्तरों की अपेक्षा करना

(3) Offering alternative assessment methods for demonstration / प्रदर्शन के लिए वैकल्पिक आकलन विधियाँ प्रदान करना ✔

(4) Mandating uniform timed testing conditions / एकसमान समयबद्ध परीक्षण परिस्थितियों को अनिवार्य करना

Q.192 The affective domain in Bloom's taxonomy primarily focuses on which aspect(s) of learning?

ब्लूम के वर्गीकरण में भावात्मक क्षेत्र मुख्य रूप से अधिगम के किस पहलू/किन पहलुओं पर केंद्रित है?

(1) Language proficiency / भाषा दक्षता

(2) Knowledge and understanding / ज्ञान और बोध

(3) Emotions and attitudes / संवेग और अभिवृत्तियाँ ✔

(4) Physical coordination / शारीरिक समन्वय

Q.193 In Bloom's taxonomy, which combination of domains would be targeted by a project that requires students to research, present, and reflect on historical events?

ब्लूम के वर्गीकरण में, एक ऐसी परियोजना द्वारा क्षेत्रों के किस संयोजन को लक्षित किया जाएगा जिसमें विद्यार्थियों को ऐतिहासिक घटनाओं पर अनुसंधान, प्रस्तुतीकरण और चिंतन करना हो?

(1) Psychomotor and musical domains only / केवल मनोगत्यात्मक और संगीतात्मक क्षेत्र

(2) Affective and logical domains only / केवल भावात्मक और तार्किक क्षेत्र

(3) Cognitive, affective, and psychomotor domains / संज्ञानात्मक, भावात्मक और मनोगत्यात्मक क्षेत्र ✔

(4) Cognitive and linguistic domains only / केवल संज्ञानात्मक और भाषायी क्षेत्र

Q.194 How can a teacher best address gender bias in classroom resources?

एक शिक्षक कक्षा संसाधनों में लैंगिक पूर्वाग्रह को सबसे अच्छी तरह कैसे संबोधित कर सकता है?

(1) Audit textbooks for bias / पूर्वाग्रह के लिए पाठ्यपुस्तकों की जाँच करना ✔

(2) Set gender quotas for leaders / नेतृत्वकर्ताओं के लिए लैंगिक कोटा निर्धारित करना

(3) Equalize visual genders / दृश्य चित्रणों में लिंगों को समान करना

(4) Train on gender roles / लैंगिक भूमिकाओं पर प्रशिक्षण देना

Q.195 In a class 6 science lesson, students are asked to float eggs in salt water and record their observations, then discuss why some eggs sink and others float. Which aspect of the nature of science is best illustrated by this activity?

कक्षा 6 के विज्ञान के एक पाठ में, विद्यार्थियों को खारे पानी में अंडे तैराने और अपने अवलोकनों को दर्ज करने के लिए कहा जाता है, फिर इस पर चर्चा करने के लिए कहा जाता है कि कुछ अंडे क्यों डूबते हैं और अन्य क्यों तैरते हैं। इस गतिविधि द्वारा विज्ञान की प्रकृति का कौन-सा पहलू सबसे अच्छी तरह दर्शाया गया है?

(1) Empirical evidence-based investigation / आनुभविक साक्ष्य-आधारित अन्वेषण ✔

(2) Fixed theoretical models / निश्चित सैद्धांतिक मॉडल

(3) Authority-based explanation / प्राधिकार-आधारित व्याख्या

(4) Rote memorization of facts / तथ्यों को रटकर याद करना

Q.196 When students with disabilities are provided with accommodations such as extended time, modified seating arrangements, and appropriate assistive devices, this practice represents:
जब दिव्यांग विद्यार्थियों को अतिरिक्त समय, संशोधित बैठने की व्यवस्था और उपयुक्त सहायक उपकरण जैसी सुविधाएँ प्रदान की जाती हैं, तो यह अभ्यास किसका प्रतिनिधित्व करता है?

(1) Social isolation / सामाजिक अलगाव
(2) Structural discrimination / संरचनात्मक भेदभाव
(3) Attitudinal exclusion / अभिवृत्तिगत बहिष्करण
(4) **Pedagogical inclusion / शैक्षणिक समावेशन ✔**

Q.197 Which approach best supports conceptual understanding of numbers among elementary students?
कौन-सा दृष्टिकोण प्रारंभिक कक्षाओं के विद्यार्थियों में संख्याओं की संकल्पनात्मक समझ का सबसे अच्छा समर्थन करता है?

(1) **Using manipulatives and real-life examples in lessons / पाठों में मूर्त हस्तसाधित सामग्री और वास्तविक जीवन के उदाहरणों का उपयोग करना ✔**
(2) Focusing exclusively on rote memorization of tables / केवल पहाड़ों को रटकर याद करने पर ध्यान केंद्रित करना
(3) Relying entirely on textbook definitions without practice / बिना अभ्यास के पूर्णतः पाठ्यपुस्तक की परिभाषाओं पर निर्भर रहना
(4) Assigning only theoretical worksheets for homework / गृहकार्य के लिए केवल सैद्धांतिक कार्यपत्रक देना

Q.198 Which of the following best demonstrates a school's commitment to working towards gender equality?
निम्नलिखित में से कौन-सा लैंगिक समानता की दिशा में कार्य करने के प्रति विद्यालय की प्रतिबद्धता को सबसे अच्छी तरह प्रदर्शित करता है?

(1) Celebrating only International Women's Day / केवल अंतर्राष्ट्रीय महिला दिवस मनाना
(2) **Organizing workshops on gender stereotypes / लैंगिक रूढ़ियों पर कार्यशालाओं का आयोजन करना ✔**
(3) Forming single-gender sports teams for competitions / प्रतियोगिताओं के लिए एकल-लिंग खेल टीमें बनाना
(4) Encouraging only girls to participate in science clubs / केवल लड़कियों को विज्ञान क्लबों में भाग लेने के लिए प्रोत्साहित करना

Q.199 A school wishes to address the issue of gender bias in classroom interactions. Which approach is most effective for promoting inclusive education according to current theories on diversity and gender?
एक विद्यालय कक्षा अंतःक्रियाओं में लैंगिक पूर्वाग्रह के मुद्दे को संबोधित करना चाहता है।
विविधता और जेंडर पर वर्तमान सिद्धांतों के अनुसार, समावेशी शिक्षा को बढ़ावा देने के लिए कौन-सा दृष्टिकोण सबसे प्रभावी है?

(1) Increasing the number of female teachers in the school / विद्यालय में महिला शिक्षकों की संख्या बढ़ाना
(2) **Training teachers to recognise and challenge implicit bias / शिक्षकों को अंतर्निहित पूर्वाग्रह को पहचानने और उसे चुनौती देने के लिए प्रशिक्षित करना ✔**
(3) Modifying curriculum content alone without altering classroom practices / कक्षा पद्धतियों में परिवर्तन किए बिना केवल पाठ्यचर्या की विषय-वस्तु में संशोधन करना
(4) Separating students by gender to minimize bias / पूर्वाग्रह को कम करने के लिए विद्यार्थियों को लिंग के आधार पर अलग करना

Q.200 In evaluating classroom practices, which approach best addresses inequality and diversity?
कक्षा पद्धतियों का मूल्यांकन करते समय, कौन-सा दृष्टिकोण असमानता और विविधता को सबसे अच्छी तरह संबोधित करता है?

(1) Highlighting only top achievers / केवल शीर्ष उपलब्धि प्राप्त करने वालों को उजागर करना
(2) Grouping by language ability / भाषा क्षमता के आधार पर समूह बनाना
(3) **Encouraging all student voices / सभी विद्यार्थियों की आवाज़ों को प्रोत्साहित करना ✔**
(4) Limiting culture to textbooks " / संस्कृति को पाठ्यपुस्तकों तक सीमित करना "

Answer Key / उत्तर कुंजी

1 3	**2** 3	**3** 4	**4** 3	**5** 3	**6** 3	**7** 2	**8** 2	**9** 3	**10** 1	**11** 4	**12** 4	**13** 1	**14** 2	**15** 4
16 2	**17** 3	**18** 2	**19** 2	**20** 4	**21** 4	**22** 4	**23** 2	**24** 2	**25** 3	**26** 1	**27** 4	**28** 3	**29** 2	**30** 2
31 1	**32** 1	**33** 2	**34** 4	**35** 3	**36** 2	**37** 1	**38** 2	**39** 1	**40** 4	**41** 3	**42** 3	**43** 3	**44** 3	**45** 2
46 2	**47** 4	**48** 3	**49** 3	**50** 4	**51** 1	**52** 4	**53** 2	**54** 4	**55** 4	**56** 3	**57** 2	**58** 3	**59** 4	**60** 1
61 3	**62** 4	**63** 2	**64** 4	**65** 3	**66** 3	**67** 4	**68** 2	**69** 3	**70** 3	**71** 2	**72** 3	**73** 1	**74** 1	**75** 3
76 2	**77** 4	**78** 2	**79** 1	**80** 4	**81** 1	**82** 1	**83** 4	**84** 4	**85** 1	**86** 1	**87** 3	**88** 1	**89** 2	**90** 3
91 1	**92** 4	**93** 2	**94** 1	**95** 1	**96** 4	**97** 1	**98** 2	**99** 3	**100** 4	**101** 2	**102** 4	**103** 3	**104** 2	**105** 3
106 2	**107** 4	**108** 2	**109** 4	**110** 2	**111** 1	**112** 2	**113** 4	**114** 4	**115** 3	**116** 2	**117** 4	**118** 2	**119** 2	**120** 1
121 2	**122** 3	**123** 1	**124** 2	**125** 3	**126** 3	**127** 3	**128** 3	**129** 2	**130** 2	**131** 4	**132** 1	**133** 2	**134** 1	**135** 3
136 2	**137** 3	**138** 1	**139** 1	**140** 2	**141** 4	**142** 1	**143** 2	**144** 1	**145** 4	**146** 4	**147** 3	**148** 1	**149** 1	**150** 2
151 3	**152** 3	**153** 3	**154** 3	**155** 4	**156** 3	**157** 4	**158** 4	**159** 2	**160** 3	**161** 2	**162** 2	**163** 1	**164** 3	**165** 3
166 1	**167** 4	**168** 4	**169** 2	**170** 1	**171** 3	**172** 3	**173** 4	**174** 3	**175** 4	**176** 1	**177** 4	**178** 4	**179** 2	**180** 3
181 4	**182** 2	**183** 2	**184** 1	**185** 1	**186** 1	**187** 1	**188** 3	**189** 3	**190** 4	**191** 3	**192** 3	**193** 3	**194** 1	**195** 1
196 4	**197** 1	**198** 2	**199** 2	**200** 3										

QuickSarkari

GOVT. OF NCT OF DELHI
Delhi Subordinate Services Selection Board
FC-18, Institutional Area, Karkardooma, Delhi – 110092.
www.dsssb.delhigovt.nic.in

Participant ID	[redacted]
Participant Name	[redacted]
Test Center Name	[redacted]
Test Date	10/04/2026
Test Time	9:00 AM - 11:00 AM
Subject	Assistant Teacher Primary

Section : **General Intelligence and Reasoning Ability**

Q.1 **Select the correct mirror image of the given figure when the mirror is placed at MN as shown below.**

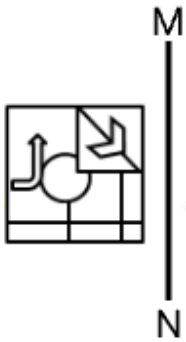

Ans

✗ 1. 

✗ 2. 

✓ 3. 

✗ 4. 

Question ID : **4410091614488**
Option 1 ID : **4410096376771**
Option 2 ID : **4410096376769**
Option 3 ID : **4410096376770**
Option 4 ID : **4410096376772**

QuickSarkari.com | WhatsApp Channel | Telegram: t.me/quick_sarkari

Q.2 What should come in place of '?' in the given series?

163 132 107 88 75 ?

Ans
✗ 1. 59
✗ 2. 65
✓ 3. 68
✗ 4. 61

Question ID : **441009176392**
Option 1 ID : **441009697494**
Option 2 ID : **441009697492**
Option 3 ID : **441009697491**
Option 4 ID : **441009697493**

Q.3 C is the brother of O. O is the father of R. T is the father of Y. Y is the son of R. How is T related to C?

Ans
✗ 1. Brother's daughter
✗ 2. Daughter's husband
✗ 3. Brother's daughter's son
✓ 4. Brother's daughter's husband

Question ID : **4410091618988**
Option 1 ID : **4410096394827**
Option 2 ID : **4410096394826**
Option 3 ID : **4410096394825**
Option 4 ID : **4410096394824**

Q.4 All 50 students in a class are standing in a straight line facing the north. Shyam is 9th from the right end while Ram is 15th from the left end. How many students stand between Shyam and Ram?

Ans
✗ 1. 25
✗ 2. 28
✓ 3. 26
✗ 4. 27

Question ID : **441009216728**
Option 1 ID : **441009850952**
Option 2 ID : **441009850954**
Option 3 ID : **441009850951**
Option 4 ID : **441009850953**

Q.5 Based on the English alphabetical order, three of the following four letter-cluster pairs are alike in a certain way and thus form a group. Which is the one that does not belong to that group?
(Note: The odd one out is not based on the number of consonants/vowels or their position in the letter cluster.)

Ans
✗ 1. CB - DC
✗ 2. GF - HG
✓ 3. IH - JH
✗ 4. ON - PO

Question ID : **441009790207**
Option 1 ID : **4410093114829**
Option 2 ID : **4410093114830**
Option 3 ID : **4410093114828**
Option 4 ID : **4410093114827**

Q.6 Each vowel in the word POLARISE is changed to the letter immediately preceding it in the English alphabetical order and each consonant is changed to the letter immediately following it in the English alphabetical order. How many letters will appear exactly twice in the new group of letters thus formed?

Ans
✗ 1. Two
✗ 2. One
✓ 3. Zero
✗ 4. Three

Question ID : **441009216465**
Option 1 ID : **441009849901**
Option 2 ID : **441009849900**
Option 3 ID : **441009849899**
Option 4 ID : **441009849902**

Q.7 Based on the English alphabetical order, three of the following four letter-cluster pairs are alike in a certain way and thus form a group. Which letter-cluster pair DOES NOT belong to that group?
(Note: The odd one out is not based on the number of consonants/vowels or their position in the letter-cluster.)

Ans
✗ 1. LO-QJ
✓ 2. EH-JD
✗ 3. HK-MF
✗ 4. NQ-SL

Question ID : **441009346629**
Option 1 ID : **4410091352583**
Option 2 ID : **4410091352581**
Option 3 ID : **4410091352582**
Option 4 ID : **4410091352584**

Q.8 Refer to the following series and answer the question (all numbers are single digit numbers only).
(Left)3 7 4 5 2 4 8 4 9 4 2 1 5 3 4 6 2 1 5 7 3 7 5 9 8 5 (Right)
How many such odd digits are there each of which is immediately preceded by an odd digit and also immediately followed by an even digit?

Ans
✗ 1. 2
✓ 2. 3
✗ 3. 4
✗ 4. 1

Question ID : **441009783648**
Option 1 ID : **4410093088596**
Option 2 ID : **4410093088597**
Option 3 ID : **4410093088598**
Option 4 ID : **4410093088595**

Q.9 If + means -, - means x, x means ÷, ÷ means +, then what will come in place of the question mark (?) in the following equation?

156 + 22 - 3 ÷ 45 x 9 = ?

Ans
✗ 1. 94
✗ 2. 96
✓ 3. 95
✗ 4. 97

Question ID : **441009553717**
Option 1 ID : **4410092170182**
Option 2 ID : **4410092170184**
Option 3 ID : **4410092170183**
Option 4 ID : **4410092170185**

Q.10 Seven boxes, F, I, L, T, E, R and S, are kept one over the other but not necessarily in the same order. Only three boxes are kept below L. Only two boxes are kept between L and I. Only E is kept above R. F is kept at some place below T and at some place above S. Which box is kept at second position from the bottom?

Ans
✓ 1. S
✗ 2. L
✗ 3. R
✗ 4. F

Question ID : **4410091518838**
Option 1 ID : **4410095998633**
Option 2 ID : **4410095998631**
Option 3 ID : **4410095998632**
Option 4 ID : **4410095998630**

Q.11 What will come in place of '?' in the following equation, if '+' and '-' are interchanged and '×' and '÷' are interchanged?

308 × 14 - 17 ÷ 9 + 124 = ?

Ans
✗ 1. 45
✗ 2. 49
✗ 3. 56
✓ 4. 51

Question ID : **4410091528092**
Option 1 ID : **4410096035561**
Option 2 ID : **4410096035562**
Option 3 ID : **4410096035564**
Option 4 ID : **4410096035563**

QuickSarkari.com | WhatsApp Channel | Telegram: t.me/quick_sarkari

Q.12 Refer to the following letter series and answer the question
(Left) T H T V Y W J C I O Q O J K L W W Z E (Right)
How many such vowels are there each of which is immediately preceded by a consonant and also immediately followed by a consonant?

Ans
✗ 1. 4
✗ 2. 3
✗ 3. 2
✓ 4. 1

Question ID : **441009779685**
Option 1 ID : **4410093072746**
Option 2 ID : **4410093072745**
Option 3 ID : **4410093072744**
Option 4 ID : **4410093072743**

Q.13 FBAB is related to CYXY in a certain way based on the English alphabetical order. In the same way, BXWX is related to YUTU. To which of the following is KGFG related, following the same logic?

Ans
✓ 1. HDCD
✗ 2. HEBH
✗ 3. HCBD
✗ 4. HDBD

Question ID : **441009779052**
Option 1 ID : **4410093070211**
Option 2 ID : **4410093070212**
Option 3 ID : **4410093070213**
Option 4 ID : **4410093070214**

Q.14 Below are given two sets of numbers. In each set of numbers, a certain mathematical operation on first number results in the second number. Similarly, certain mathematical operation on second number results in the third number and so on. Which of the given options follows the same set of operations as in question?
(NOTE : Operations should be performed on the whole numbers, without breaking down the numbers into its constituent digits. E.g. 13 – Operations on 13 such as adding / subtracting /multiplying etc. to 13 can be performed. Breaking down 13 into 1 and 3 and then performing mathematical operations on 1 and 3 is not allowed.)
33 - 36 - 31 - 124
38 - 41 - 36 - 144

Ans
✗ 1. 31 - 33 - 28 - 112
✓ 2. 49 - 52 - 47 - 188
✗ 3. 41 - 44 - 37 - 185
✗ 4. 32 - 36 - 31 - 155

Question ID : **441009528658**
Option 1 ID : **4410092070038**
Option 2 ID : **4410092070036**
Option 3 ID : **4410092070039**
Option 4 ID : **4410092070037**

Q.15 Six people, A, B, C, D, E and F, are sitting in a row, facing north.
Only two people sit between B and F. D sits to the immediate left of F. A sits second to the right of E. C is an immediate neighbour of F. E sits to the immediate left of B.
How many people sit between B and C?

Ans
✗ 1. One
✗ 2. Two
✗ 3. None
✓ 4. Three

Question ID : **4410091422290**
Option 1 ID : **4410095618067**
Option 2 ID : **4410095618068**
Option 3 ID : **4410095618066**
Option 4 ID : **4410095618069**

Q.16 In a certain code language, 'FATE' is coded as '4265' and 'FALE' is coded as '2145'.
What is the code for 'L' in the given code language?

Ans
✗ 1. 2
✓ 2. 1
✗ 3. 6
✗ 4. 4

Question ID : **4410091614539**
Option 1 ID : **4410096376971**
Option 2 ID : **4410096376969**
Option 3 ID : **4410096376970**
Option 4 ID : **4410096376972**

Q.17 Refer to the following letter series and answer the question that follows. Counting to be done from left to right only.

(Left) Q A W S E D U J Y H B V G T I O K B Y H T U I B C A D E Y E U (Right)

How many such consonants are there each of which is immediately preceded by a vowel and also immediately followed by a vowel?

Ans
✗ 1. None
✗ 2. Two
✓ 3. Three
✗ 4. One

Question ID : **441009787531**
Option 1 ID : **4410093104123**
Option 2 ID : **4410093104125**
Option 3 ID : **4410093104126**
Option 4 ID : **4410093104124**

Q.18 **Each of L, A, Y, E, R, S and T has an exam on a different day of a week starting from Monday and ending on Sunday of the same week. S has exam on Thursday, and Y has exam on Saturday. R has exam immediately before A. T has exam on one of the days after L. E has exam immediately after A. How many people have exams between T and E?**

Ans

✗ 1. One

✓ 2. Three

✗ 3. Four

✗ 4. Two

Question ID : **4410091614384**
Option 1 ID : **4410096376349**
Option 2 ID : **4410096376351**
Option 3 ID : **4410096376352**
Option 4 ID : **4410096376350**

QuickSarkari

Q.19 Select the option in which the given figure is embedded (rotation is NOT allowed).



Ans

1. 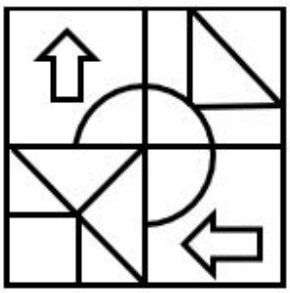

2. 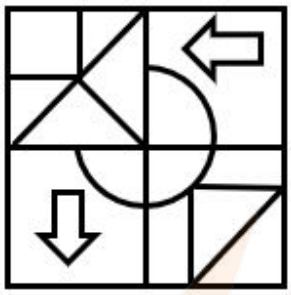

3. 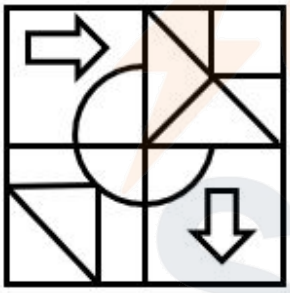

4. 

Question ID : **441009906457**
Option 1 ID : **4410093579637**
Option 2 ID : **4410093579636**
Option 3 ID : **4410093579638**
Option 4 ID : **4410093579639**

QuickSarkari.com | WhatsApp Channel | Telegram: t.me/quick_sarkari

Q.20 **Which of the following letter-number clusters will replace the question mark (?) in the given series to make it logically complete?**
IFK167, DAF147, YVA127, TQV107, ?

Ans
✗ 1. OLP87
✗ 2. OUQ87
✗ 3. VLQ87
✓ 4. OLQ87

Question ID : **4410091618955**
Option 1 ID : **4410096394694**
Option 2 ID : **4410096394693**
Option 3 ID : **4410096394695**
Option 4 ID : **4410096394692**

Section : **General Awareness**

Q.1 **When did India celebrate its First National Space Day in 2024?**

Ans
✗ 1. November 23, 2024
✗ 2. October 23, 2024
✗ 3. July 23, 2024
✓ 4. August 23, 2024

Question ID : **441009246793**
Option 1 ID : **441009961469**
Option 2 ID : **441009961468**
Option 3 ID : **441009961466**
Option 4 ID : **441009961467**

Q.2 **According to the Indian Constitution, the executive power of the Union is:**

Ans
✗ 1. Shared equally between the President and the Chief Justice of India
✗ 2. Vested solely in the Prime Minister
✗ 3. Exercised only during a national emergency
✓ 4. Vested in the President and exercised by him directly or through subordinate officers

Question ID : **441009672153**
Option 1 ID : **4410092642708**
Option 2 ID : **4410092642706**
Option 3 ID : **4410092642709**
Option 4 ID : **4410092642707**

Q.3 **The second Five Year Plan in India was formulated on whose ideas?**

Ans
✗ 1. T.T. Krishnamachari
✓ 2. Prasanta Chandra Mahalanobis
✗ 3. Dr. John Mathai
✗ 4. R.K. Shanmukham Chetty

Question ID : **441009510552**
Option 1 ID : **4410091997367**
Option 2 ID : **4410091997368**
Option 3 ID : **4410091997369**
Option 4 ID : **4410091997366**

QuickSarkari.com | WhatsApp Channel | Telegram: t.me/quick_sarkari

Q.4 Which of the following statements is CORRECT regarding the term of office of the President of India?

Ans

✗ 1. The President can only be removed by the Prime Minister or the Chief Justice of India.

✓ 2. The President continues in office even after the term ends, until a successor takes charge.

✗ 3. The President must vacate office exactly on the completion of five years.

✗ 4. The President holds office for six years and cannot resign.

Question ID : **441009672159**
Option 1 ID : **4410092642732**
Option 2 ID : **4410092642731**
Option 3 ID : **4410092642733**
Option 4 ID : **4410092642730**

Q.5 Pyrolusite ore (MnO_2) is used for the preparation of _____.

Ans

✗ 1. sodium chromate

✗ 2. potassium dichromate

✓ 3. potassium permanganate

✗ 4. sodium manganate

Question ID : **441009615604**
Option 1 ID : **4410092416585**
Option 2 ID : **4410092416586**
Option 3 ID : **4410092416587**
Option 4 ID : **4410092416588**

Q.6 The tribal dance form "Karma" is traditionally performed by which community?

Ans

✓ 1. Oraon

✗ 2. Apatani

✗ 3. Garo

✗ 4. Bhil

Question ID : **441009753368**
Option 1 ID : **4410092967427**
Option 2 ID : **4410092967428**
Option 3 ID : **4410092967426**
Option 4 ID : **4410092967425**

Q.7 The salary and allowances of the Chief Minister of the state are _____.

Ans

✗ 1. Determined by the Pay Commission of the state

✗ 2. Determined by the Governor of the state

✗ 3. Determined by the Parliament

✓ 4. Determined by the State Legislature

Question ID : **441009276085**
Option 1 ID : **4410091072469**
Option 2 ID : **4410091072467**
Option 3 ID : **4410091072468**
Option 4 ID : **4410091072466**

QuickSarkari.com | WhatsApp Channel | Telegram: t.me/quick_sarkari

Q.8 When did the Ahom Revolt unfold in Assam as a resistance to British rule in the region?

Ans
✗ 1. 1830
✗ 2. 1844
✓ 3. 1828
✗ 4. 1834

Question ID : **441009106020**
Option 1 ID : **441009422130**
Option 2 ID : **441009422132**
Option 3 ID : **441009422129**
Option 4 ID : **441009422131**

Q.9 What was the total value of the five capital acquisition proposals approved by the DAC (Defence Acquisition Committee) on December 3, 2024?

Ans
✗ 1. ₹15,000 Crore
✓ 2. ₹21,772 Crore
✗ 3. ₹25,000 Crore
✗ 4. ₹18,600 Crore

Question ID : **441009207063**
Option 1 ID : **441009814195**
Option 2 ID : **441009814196**
Option 3 ID : **441009814198**
Option 4 ID : **441009814197**

Q.10 The World Energy Outlook 2025 was released by which organisation?

Ans
✗ 1. International Monetary Fund
✓ 2. International Energy Agency
✗ 3. Organization Petroleum Energy Agency
✗ 4. World Meteorological Organization of Energy

Question ID : **4410091563038**
Option 1 ID : **4410096173715**
Option 2 ID : **4410096173716**
Option 3 ID : **4410096173717**
Option 4 ID : **4410096173718**

Q.11 Which international organisation published its *Annual Report 2024-2025* and unveiled a *Strategic Plan 2025-2028* in November 2025?

Ans
✓ 1. World Customs Organization
✗ 2. World Health Organization
✗ 3. World Bank
✗ 4. International Labour Organization

Question ID : **4410091563040**
Option 1 ID : **4410096173724**
Option 2 ID : **4410096173723**
Option 3 ID : **4410096173726**
Option 4 ID : **4410096173725**

QuickSarkari.com | WhatsApp Channel | Telegram: t.me/quick_sarkari

Q.12 The Harappan civilization is famous for its well-planned cities. Which of the following features is commonly found in Harappan cities?

Ans
- ✔ 1. Grid pattern of streets
- ✘ 2. Circular roads
- ✘ 3. Random building construction
- ✘ 4. Elevated platforms

Question ID : **441009749113**
Option 1 ID : **4410092950281**
Option 2 ID : **4410092950280**
Option 3 ID : **4410092950282**
Option 4 ID : **4410092950283**

Q.13 What was the sex ratio in India as reported in Census 2011?

Ans
- ✘ 1. 930 females per 1000 males
- ✔ 2. 943 females per 1000 males
- ✘ 3. 920 females per 1000 males
- ✘ 4. 950 females per 1000 males

Question ID : **441009637582**
Option 1 ID : **4410092504474**
Option 2 ID : **4410092504472**
Option 3 ID : **4410092504471**
Option 4 ID : **4410092504473**

Q.14 When did the NITI Aayog launch the baseline edition of the Multidimensional Poverty Index for India?

Ans
- ✘ 1. 2022
- ✘ 2. 2025
- ✘ 3. 2023
- ✔ 4. 2021

Question ID : **441009226967**
Option 1 ID : **441009888683**
Option 2 ID : **441009888685**
Option 3 ID : **441009888684**
Option 4 ID : **441009888682**

Q.15 Who among the following leaders founded the Indian Home Rule Society?

Ans
- ✘ 1. Lala Lajpat Rai
- ✘ 2. Mahatma Gandhi
- ✔ 3. Shyamji Krishna Varma
- ✘ 4. Motilal Nehru

Question ID : **441009328849**
Option 1 ID : **4410091281809**
Option 2 ID : **4410091281806**
Option 3 ID : **4410091281808**
Option 4 ID : **4410091281807**

QuickSarkari.com | WhatsApp Channel | Telegram: t.me/quick_sarkari

Q.16 The Indian women's national volleyball team secured gold at the 4th CAVA Women's Volleyball Nations League 2024 by winning how many sets in the final match?

Ans
✗ 1. 5
✓ 2. 3
✗ 3. 4
✗ 4. 2

Question ID : **441009379057**
Option 1 ID : **4410091482056**
Option 2 ID : **4410091482054**
Option 3 ID : **4410091482055**
Option 4 ID : **4410091482053**

Q.17 Which of the following schemes of the Government of India provides pensions to poor elderly individuals who lack support from caregivers?

Ans
✓ 1. National Social Assistance Programme
✗ 2. Mahatma Gandhi National Rural Employment Guarantee Act
✗ 3. National Rural Employment Guarantee Scheme
✗ 4. Pradhan Mantri Awas Yojana

Question ID : **441009637396**
Option 1 ID : **4410092503727**
Option 2 ID : **4410092503730**
Option 3 ID : **4410092503728**
Option 4 ID : **4410092503729**

Q.18 During which century was the Quwwat al-Islam mosque and minaret built in Delhi?

Ans
✗ 1. Tenth century
✓ 2. Twelfth century
✗ 3. Eleventh century
✗ 4. Fifteenth century

Question ID : **441009205179**
Option 1 ID : **441009806939**
Option 2 ID : **441009806937**
Option 3 ID : **441009806938**
Option 4 ID : **441009806940**

Q.19 The 'Prime Minister's Employment Generation Programme (PMEGP)' is administered by which of the following Ministries of the Government of India?

Ans
✓ 1. Ministry of Micro, Small and Medium Enterprises
✗ 2. Ministry of Rural Development
✗ 3. Ministry of Labour and Employment
✗ 4. Ministry of Home Affairs

Question ID : **441009637570**
Option 1 ID : **4410092504423**
Option 2 ID : **4410092504425**
Option 3 ID : **4410092504426**
Option 4 ID : **4410092504424**

QuickSarkari

Q.20 In a food chain, small carnivores or secondary consumers are present in which tropical level?

Ans
✗ 1. Trophic level fourth
✗ 2. Trophic level first
✗ 3. Trophic level second
✓ 4. Trophic level third

Question ID : **441009615671**
Option 1 ID : **4410092416856**
Option 2 ID : **4410092416853**
Option 3 ID : **4410092416854**
Option 4 ID : **4410092416855**

Section : **Arithmetical and Numerical Ability**

Q.1 Three numbers are in the ratio 4 : 3 : 13 and their LCM is 4524. Their HCF is:

Ans
✗ 1. 21
✗ 2. 49
✓ 3. 29
✗ 4. 45

Question ID : **441009525725**
Option 1 ID : **4410092058322**
Option 2 ID : **4410092058320**
Option 3 ID : **4410092058319**
Option 4 ID : **4410092058321**

Q.2 M and N begin a business partnership. M invests ₹42,000 more than N for 6 months, while N's investment lasts for 5 months. Out of a total profit of ₹1256, M earns ₹314 more than N. Determine the amount invested by M.

Ans
✗ 1. ₹149825
✗ 2. ₹149823
✓ 3. ₹150000
✗ 4. ₹149969

Question ID : **441009899590**
Option 1 ID : **4410093552433**
Option 2 ID : **4410093552431**
Option 3 ID : **4410093552430**
Option 4 ID : **4410093552432**

Q.3 Water flows out through a circular pipe whose internal diameter is 2 cm, at the rate of 6 metres per second into a cylindrical tank, the radius of whose base is 100 cm. By how much will the level of water rise in 15 minutes?

Ans
✗ 1. 62 cm
✗ 2. 50 cm
✓ 3. 54 cm
✗ 4. 46 cm

Question ID : **441009600193**
Option 1 ID : **4410092355892**
Option 2 ID : **4410092355890**
Option 3 ID : **4410092355889**
Option 4 ID : **4410092355891**

Q.4 What is the difference between the average of prime numbers between 40 and 70 and the average of multiples of 2 between 10 and 60?

Ans
✗ 1. 26
✗ 2. 20
✓ 3. 18
✗ 4. 13

Question ID : **441009580969**
Option 1 ID : **4410092279003**
Option 2 ID : **4410092279004**
Option 3 ID : **4410092279002**
Option 4 ID : **4410092279005**

Q.5 A pipe can fill an empty tank in 10 hours. Another pipe can empty the filled tank in 40 hours. If both pipes are opened simultaneously when the tank is empty, how many hours will it take for the tank to be three-fourths full?

Ans
✗ 1. 20
✓ 2. 10
✗ 3. 30
✗ 4. 40

Question ID : **441009519288**
Option 1 ID : **4410092032572**
Option 2 ID : **4410092032571**
Option 3 ID : **4410092032574**
Option 4 ID : **4410092032573**

Q.6 What sum (in ₹) will earn a simple interest of ₹1560 in 3 years at 4% per year rate of interest?

Ans
✗ 1. 26000
✓ 2. 13000
✗ 3. 187.2
✗ 4. 6500

Question ID : **441009852639**
Option 1 ID : **4410093363530**
Option 2 ID : **4410093363528**
Option 3 ID : **4410093363531**
Option 4 ID : **4410093363529**

Q.7 The diagonals of a rhombus shaped field are 360 m and 66 m long. What is the perimeter (in m) of the field?

Ans
✗ 1. 749
✗ 2. 701
✗ 3. 709
✓ 4. 732

Question ID : **441009594586**
Option 1 ID : **4410092333463**
Option 2 ID : **4410092333464**
Option 3 ID : **4410092333462**
Option 4 ID : **4410092333461**

QuickSarkari.com | WhatsApp Channel | Telegram: t.me/quick_sarkari

Q.8 Ashish's salary is ₹12,000 per month. He spends ₹5,500 on house rent, ₹2,000 on bills and the rest of the amount is his monthly savings. Find his savings (in ₹) in a year, if in the month of his birthday he spent his complete monthly saving for birthday celebrations.

Ans
✗ 1. 45,000
✗ 2. 40,500
✓ 3. 49,500
✗ 4. 54,000

Question ID : **441009209379**
Option 1 ID : **441009822801**
Option 2 ID : **441009822802**
Option 3 ID : **441009822799**
Option 4 ID : **441009822800**

Q.9 What time (correct to the nearest second) is required for a 268 m long train to cross a 440 m long tunnel, if the train travels at a speed of 17 km/h?

Ans
✗ 1. 157
✗ 2. 153
✓ 3. 150
✗ 4. 165

Question ID : **441009125508**
Option 1 ID : **441009498878**
Option 2 ID : **441009498877**
Option 3 ID : **441009498875**
Option 4 ID : **441009498876**

Q.10 A, B and C started a business on partnership. A invested $\frac{1}{5}$th of

What is the ratio of shares of profits of A, B and C, respectively?

Ans
✗ 1. 3 : 4 : 5
✗ 2. 2 : 3 : 5
✗ 3. 1 : 3 : 5
✓ 4. 3 : 5 : 7

Question ID : **441009202602**
Option 1 ID : **441009797112**
Option 2 ID : **441009797113**
Option 3 ID : **441009797114**
Option 4 ID : **441009797111**

QuickSarkari.com | WhatsApp Channel | Telegram: t.me/quick_sarkari

Q.11 **Study the following table and answer the question based on it.**

Expenditures of a company (in lakh rupees) per annum over the given years

Year	Item of Expenditure				
	Salary	Fuel and Transport	Bonus	Interest on Loans	Taxes
2001	242	126	292	327	64
2002	284	56	436	201	78
2003	328	100	182	364	60
2004	326	58	237	262	80
2005	332	136	338	444	108

What is the average amount of interest (in lakh rupees) per year which the company had to pay during this period?

Ans
✔ 1. 319.6
✘ 2. 252.1
✘ 3. 287.5
✘ 4. 322.4

Question ID : **441009960920**
Option 1 ID : **4410093797055**
Option 2 ID : **4410093797056**
Option 3 ID : **4410093797058**
Option 4 ID : **4410093797057**

Q.12 **A teacher has two batches of students. In Batch A, the average score is 84, and in Batch B, the average score is 78. If the number of students in Batch A is twice the number of students in Batch B, what is the combined average score of all students?**

Ans
✘ 1. 80
✘ 2. 81
✘ 3. 79
✔ 4. 82

Question ID : **441009208939**
Option 1 ID : **441009821039**
Option 2 ID : **441009821041**
Option 3 ID : **441009821040**
Option 4 ID : **441009821042**

Q.13 **A shopkeeper claims to sell sugar at the cost price, but he uses a false weight. He gives only 800 g of sugar to the customer while charging for 1 kg. What is his gain percentage?**

Ans
✘ 1. 40%
✔ 2. 25%
✘ 3. 30%
✘ 4. 20%

Question ID : **4410091546407**
Option 1 ID : **4410096108506**
Option 2 ID : **4410096108504**
Option 3 ID : **4410096108505**
Option 4 ID : **4410096108503**

Q.14 An Uber cab covers a distance of 867 km in 17 hours. What is its speed (in km/hr)?

Ans
✗ 1. 60
✗ 2. 49
✗ 3. 55
✓ 4. 51

Question ID : **441009209074**
Option 1 ID : **441009821582**
Option 2 ID : **441009821580**
Option 3 ID : **441009821581**
Option 4 ID : **441009821579**

Q.15 Find the cube root of $\frac{0.003375}{0.004913}$.

Ans
✗ 1. $\frac{13}{17}$
✗ 2. $\frac{17}{15}$
✗ 3. $\frac{12}{17}$
✓ 4. $\frac{15}{17}$

Question ID : **44100910896**
Option 1 ID : **44100943404**
Option 2 ID : **44100943403**
Option 3 ID : **44100943405**
Option 4 ID : **44100943402**

Q.16 A wholesaler offers a trade scheme of "Buy 4, get 1 free" on an article whose marked price is ₹800 per unit. In addition, a cash discount of 10% is allowed on the payable amount after applying the scheme. If a retailer purchases 10 such articles under this offer, then find the effective discount percentage obtained by the retailer on the total marked price.

Ans
✗ 1. 27%
✗ 2. 30%
✓ 3. 28%
✗ 4. 29%

Question ID : **4410091622423**
Option 1 ID : **4410096408466**
Option 2 ID : **4410096408465**
Option 3 ID : **4410096408464**
Option 4 ID : **4410096408467**

QuickSarkari.com | WhatsApp Channel | Telegram: t.me/quick_sarkari

Q.17 A and B can complete a piece of work in 14 days and 24 days respectively. The work left after A has worked alone for 4 days, is

Ans

✗ 1. $\frac{13}{7}$

✓ 2. $\frac{5}{7}$

✗ 3. $\frac{6}{7}$

✗ 4. $\frac{1}{7}$

Question ID : **441009913899**
Option 1 ID : **4410093609850**
Option 2 ID : **4410093609847**
Option 3 ID : **4410093609848**
Option 4 ID : **4410093609849**

Q.18 Rodney invested ₹57,500 in a bank. In two years how much compound interest (in ₹) will he get, considering annual compounding, if the rate of interest for the first year was 6% per annum and the rate for the second year was 2% per annum more than the first year?

Ans

✗ 1. 8,126

✗ 2. 7,976

✓ 3. 8,326

✗ 4. 8,576

Question ID : **441009573216**
Option 1 ID : **4410092247985**
Option 2 ID : **4410092247986**
Option 3 ID : **4410092247984**
Option 4 ID : **4410092247987**

Q.19 By selling 24 mangoes for ₹400, a man loses 20%. How many mangoes should he sell for ₹100 so as to gain 20% profit?

Ans

✗ 1. 3

✗ 2. 2

✗ 3. 5

✓ 4. 4

Question ID : **441009125507**
Option 1 ID : **441009498872**
Option 2 ID : **441009498871**
Option 3 ID : **441009498874**
Option 4 ID : **441009498873**

QuickSarkari.com | WhatsApp Channel | Telegram: t.me/quick_sarkari

Q.20 If the radius of a cone is 48 cm and the height is 63 cm, find its volume.
$\left(\text{Use } \pi = \frac{22}{7}\right)$

Ans
✔ 1. 1,52,064 cm3
✘ 2. 1,50,624 cm3
✘ 3. 1,50,064 cm3
✘ 4. 1,50,264 cm3

Question ID : **441009125596**
Option 1 ID : **441009499228**
Option 2 ID : **441009499229**
Option 3 ID : **441009499230**
Option 4 ID : **441009499227**

Section : **English Language and Comprehension**

Q.1 Select the option that is the most appropriate antonym of the underlined word in the given sentence.

He displayed an obstinate refusal to compromise on his principles.

Ans
✘ 1. implied
✘ 2. emphatic
✔ 3. compliant
✘ 4. categorical

Question ID : **4410091639710**
Option 1 ID : **4410096476150**
Option 2 ID : **4410096476148**
Option 3 ID : **4410096476149**
Option 4 ID : **4410096476147**

Q.2 Choose the correct option to complete the sentence.

The scholarship will cover expenses _____ a maximum of ₹50,000 for each selected student.

Ans
✘ 1. across
✘ 2. apart from
✘ 3. instead of
✔ 4. up to

Question ID : **4410091523892**
Option 1 ID : **4410096018844**
Option 2 ID : **4410096018846**
Option 3 ID : **4410096018845**
Option 4 ID : **4410096018843**

QuickSarkari.com | WhatsApp Channel | Telegram: t.me/quick_sarkari

Q.3 Parts of a sentence are given below in jumbled order. Arrange the parts in the correct order to form a meaningful sentence.

(O) in rhythmic beats
(P) with his cane tapping
(Q) along the cobbled street
(R) against the stones
(S) the old man walked slowly

Ans
✗ 1. OPQRS
✓ 2. SQPRO
✗ 3. POQRS
✗ 4. QPORS

Question ID : **441009436219**
Option 1 ID : **4410091704395**
Option 2 ID : **4410091704394**
Option 3 ID : **4410091704396**
Option 4 ID : **4410091704397**

Q.4 Choose the option that contains the misspelt word.

Ans
✗ 1. Conscientious
✗ 2. Meticulous
✗ 3. Idiosyncrasy
✓ 4. Perserverance

Question ID : **4410091526549**
Option 1 ID : **4410096029316**
Option 2 ID : **4410096029317**
Option 3 ID : **4410096029315**
Option 4 ID : **4410096029314**

Q.5 Choose the correct option to complete the sentence.

The debate focused on the benefits of online learning _____ traditional classroom education.

Ans
✗ 1. among
✗ 2. across
✓ 3. versus
✗ 4. besides

Question ID : **4410091523883**
Option 1 ID : **4410096018807**
Option 2 ID : **4410096018810**
Option 3 ID : **4410096018809**
Option 4 ID : **4410096018808**

QuickSarkari.com | WhatsApp Channel | Telegram: t.me/quick_sarkari

Q.6 In the following question a statement has been given with highlighted text. You are required to replace the text with the correct idiom from the given alternatives.

After being cheated by his new business partner once, Mahesh now invests his money very cautiously because he has become overly careful due to a past bad experience.

Ans
1. Look before you leap
2. All that glitters is not gold
3. Once bitten, twice shy
4. A bird in hand is worth two in the bush

Question ID : **4410091264439**
Option 1 ID : **4410094990658**
Option 2 ID : **4410094990660**
Option 3 ID : **4410094990661**
Option 4 ID : **4410094990659**

Q.7 In the given question, a statement is divided into different segments. The first segment (S1) is fixed, rearrange the other segments to form a coherent statement.

S1. Paper money
A. making it a form of currency
B. often referred to as a note or a bill
C. that is payable to the bearer on demand
D. is a type of negotiable promissory note

Ans
1. S1-D-B-A-C
2. S1-A-C-D-B
3. S1-C-A-B-D
4. S1-B-D-C-A

Question ID : **4410091524500**
Option 1 ID : **4410096021238**
Option 2 ID : **4410096021239**
Option 3 ID : **4410096021236**
Option 4 ID : **4410096021237**

Q.8 Choose the correct option to complete the sentence.

Priya's handwriting is very _____.

Ans
1. dusty
2. neat
3. expensive
4. wooden

Question ID : **4410091027297**
Option 1 ID : **4410094060746**
Option 2 ID : **4410094060744**
Option 3 ID : **4410094060745**
Option 4 ID : **4410094060747**

Quick Sarkari

Q.9 Select the most appropriate article to fill in the blank. If no article is required, select 'No article required'.

She looked out of the window and saw _____ sun setting behind the hills.

Ans
1. an
2. No article required
3. the
4. a

Question ID : **4410091083731**
Option 1 ID : **4410094289048**
Option 2 ID : **4410094289050**
Option 3 ID : **4410094289049**
Option 4 ID : **4410094289047**

Q.10 Identify the correct proverb that can replace the underlined phrase in the sentence below.

Even though she has many talents, she fails to succeed because she tries to do too many things at the same time and ends up finishing none.

Ans
1. a stitch in time saves nine
2. birds of a feather flock together
3. she is a jack of all trades, master of none
4. actions speak louder than words

Question ID : **4410091127898**
Option 1 ID : **4410094447156**
Option 2 ID : **4410094447159**
Option 3 ID : **4410094447157**
Option 4 ID : **4410094447158**

Q.11 Select the most appropriate article to fill in the blank. If no article is needed, select 'No article required'.

Roxy is _____ wonderful dog.

Ans
1. the
2. a
3. an
4. No article required

Question ID : **441009498009**
Option 1 ID : **4410091947250**
Option 2 ID : **4410091947248**
Option 3 ID : **4410091947249**
Option 4 ID : **4410091947251**

Q.12 Select the option that is the most appropriate antonym of the highlighted word in the given sentence.

The tranquil lake was a perfect place for meditation.

Ans
✗ 1. defunct
✗ 2. muffled
✓ 3. roaring
✗ 4. sulky

Question ID : **4410091639662**
Option 1 ID : **4410096476044**
Option 2 ID : **4410096476046**
Option 3 ID : **4410096476045**
Option 4 ID : **4410096476043**

Q.13 Select the most appropriate option that can substitute the underlined words in the given sentence.
He may think over deeply over the fate of empires which have always fallen because of some weakness.

Ans
✓ 1. muse
✗ 2. accomplish
✗ 3. seduce
✗ 4. bereave

Question ID : **4410091543759**
Option 1 ID : **4410096098111**
Option 2 ID : **4410096098110**
Option 3 ID : **4410096098113**
Option 4 ID : **4410096098112**

Q.14 Choose the correctly spelled word that replaces the misspelled word in the sentence below:
The manager's conscientous decision to accommodate the supplication of the differently abled employee surprised the entire committee.

Ans
✓ 1. conscientious
✗ 2. suplication
✗ 3. acommodate
✗ 4. comittee

Question ID : **4410091129020**
Option 1 ID : **4410094451630**
Option 2 ID : **4410094451632**
Option 3 ID : **4410094451631**
Option 4 ID : **4410094451633**

QuickSarkari.com | WhatsApp Channel | Telegram: t.me/quick_sarkari

Q.15 **Select the option that can be used as a one-word substitute for the given group of words.**

A government run by a king or queen

Ans
✗ 1. Democracy

✗ 2. Oligarchy

✓ 3. Monarchy

✗ 4. Republic

Question ID : **441009432447**
Option 1 ID : **4410091689306**
Option 2 ID : **4410091689309**
Option 3 ID : **4410091689308**
Option 4 ID : **4410091689307**

Comprehension:

Read the given passage and answer the questions that follow.

In the struggle for India's independence, few movements were as powerful as the Salt Satyagraha. Led by Mahatma Gandhi in 1930, this nonviolent protest was a direct challenge to British rule and their oppressive salt laws. At the time, the British controlled the production and taxation of salt, making it illegal for Indians to collect or sell it. This simple necessity became a symbol of colonial exploitation, and Gandhi decided to resist.

On 12 March 1930, Gandhi, along with 78 followers, set out on a 240-mile march from his ashram in Sabarmati to the coastal village of Dandi. As they walked, thousands joined them, transforming the march into a national movement. On 6 April, Gandhi reached the seashore and picked up a handful of salt—defying British law. This act of civil disobedience sparked mass protests across India, with people making and selling salt illegally.

The British responded with brutal force, arresting over 60,000 people, including Gandhi himself. But the movement had already shaken the empire. The Salt Satyagraha proved that nonviolence could be a powerful weapon against oppression and inspired freedom struggles worldwide. It was a turning point in India's journey to independence.

SubQuestion No : 16

Q.16 **What was the main objective of the Salt Satyagraha?**

Ans
✗ 1. To promote industrial development in India

✓ 2. To protest the British control over salt production and taxation

✗ 3. To demand the right to vote for Indians

✗ 4. To fight for better wages for workers

Question ID : **44100928695**
Option 1 ID : **441009114291**
Option 2 ID : **441009114292**
Option 3 ID : **441009114294**
Option 4 ID : **441009114293**

Comprehension:

Read the given passage and answer the questions that follow.

In the struggle for India's independence, few movements were as powerful as the Salt Satyagraha. Led by Mahatma Gandhi in 1930, this nonviolent protest was a direct challenge to British rule and their oppressive salt laws. At the time, the British controlled the production and taxation of salt, making it illegal for Indians to collect or sell it. This simple necessity became a symbol of colonial exploitation, and Gandhi decided to resist.

On 12 March 1930, Gandhi, along with 78 followers, set out on a 240-mile march from his ashram in Sabarmati to the coastal village of Dandi. As they walked, thousands joined them, transforming the march into a national movement. On 6 April, Gandhi reached the seashore and picked up a handful of salt—defying British law. This act of civil disobedience sparked mass protests across India, with people making and selling salt illegally.

The British responded with brutal force, arresting over 60,000 people, including Gandhi himself. But the movement had already shaken the empire. The Salt Satyagraha proved that nonviolence could be a powerful weapon against oppression and inspired freedom struggles worldwide. It was a turning point in India's journey to independence.

SubQuestion No : 17

Q.17 What did the British do in response to the Salt Satyagraha?

Ans

✗ 1. They ignored the protests and took no action.

✗ 2. They allowed Indians to freely produce salt.

✗ 3. They immediately lifted the salt tax.

✓ 4. They arrested over 60,000 people, including Gandhi.

Question ID : **44100928696**
Option 1 ID : **441009114295**
Option 2 ID : **441009114297**
Option 3 ID : **441009114298**
Option 4 ID : **441009114296**

Comprehension:

Read the given passage and answer the questions that follow.

In the struggle for India's independence, few movements were as powerful as the Salt Satyagraha. Led by Mahatma Gandhi in 1930, this nonviolent protest was a direct challenge to British rule and their oppressive salt laws. At the time, the British controlled the production and taxation of salt, making it illegal for Indians to collect or sell it. This simple necessity became a symbol of colonial exploitation, and Gandhi decided to resist.

On 12 March 1930, Gandhi, along with 78 followers, set out on a 240-mile march from his ashram in Sabarmati to the coastal village of Dandi. As they walked, thousands joined them, transforming the march into a national movement. On 6 April, Gandhi reached the seashore and picked up a handful of salt—defying British law. This act of civil disobedience sparked mass protests across India, with people making and selling salt illegally.

The British responded with brutal force, arresting over 60,000 people, including Gandhi himself. But the movement had already shaken the empire. The Salt Satyagraha proved that nonviolence could be a powerful weapon against oppression and inspired freedom struggles worldwide. It was a turning point in India's journey to independence.

SubQuestion No : 18

Q.18 Why did Gandhi pick up salt at Dandi?

Ans

✗ 1. To show that salt production was a natural right

✓ 2. To express defiance against British salt laws

✗ 3. To prove his leadership in the independence movement

✗ 4. To set an example for the masses to follow

Question ID : **44100928697**
Option 1 ID : **441009114299**
Option 2 ID : **441009114302**
Option 3 ID : **441009114301**
Option 4 ID : **441009114300**

Comprehension:

Read the given passage and answer the questions that follow.

In the struggle for India's independence, few movements were as powerful as the Salt Satyagraha. Led by Mahatma Gandhi in 1930, this nonviolent protest was a direct challenge to British rule and their oppressive salt laws. At the time, the British controlled the production and taxation of salt, making it illegal for Indians to collect or sell it. This simple necessity became a symbol of colonial exploitation, and Gandhi decided to resist.

On 12 March 1930, Gandhi, along with 78 followers, set out on a 240-mile march from his ashram in Sabarmati to the coastal village of Dandi. As they walked, thousands joined them, transforming the march into a national movement. On 6 April, Gandhi reached the seashore and picked up a handful of salt—defying British law. This act of civil disobedience sparked mass protests across India, with people making and selling salt illegally.

The British responded with brutal force, arresting over 60,000 people, including Gandhi himself. But the movement had already shaken the empire. The Salt Satyagraha proved that nonviolence could be a powerful weapon against oppression and inspired freedom struggles worldwide. It was a turning point in India's journey to independence.

SubQuestion No : 19

Q.19 Select the most appropriate ANTONYM of 'oppressive' as used in the passage.

Ans

✔ 1. Just

✘ 2. Cruel

✘ 3. Brutal

✘ 4. Harsh

Question ID : **44100928698**
Option 1 ID : **441009114305**
Option 2 ID : **441009114306**
Option 3 ID : **441009114304**
Option 4 ID : **441009114303**

Comprehension:

Read the given passage and answer the questions that follow.

In the struggle for India's independence, few movements were as powerful as the Salt Satyagraha. Led by Mahatma Gandhi in 1930, this nonviolent protest was a direct challenge to British rule and their oppressive salt laws. At the time, the British controlled the production and taxation of salt, making it illegal for Indians to collect or sell it. This simple necessity became a symbol of colonial exploitation, and Gandhi decided to resist.

On 12 March 1930, Gandhi, along with 78 followers, set out on a 240-mile march from his ashram in Sabarmati to the coastal village of Dandi. As they walked, thousands joined them, transforming the march into a national movement. On 6 April, Gandhi reached the seashore and picked up a handful of salt—defying British law. This act of civil disobedience sparked mass protests across India, with people making and selling salt illegally.

The British responded with brutal force, arresting over 60,000 people, including Gandhi himself. But the movement had already shaken the empire. The Salt Satyagraha proved that nonviolence could be a powerful weapon against oppression and inspired freedom struggles worldwide. It was a turning point in India's journey to independence.

SubQuestion No : 20

Q.20 What is the overall tone of the passage?

Ans

✘ 1. Inspirational and reflective

✘ 2. Indifferent and detached

✘ 3. Humorous and lighthearted

✔ 4. Angry and confrontational

Question ID : **44100928699**
Option 1 ID : **441009114308**
Option 2 ID : **441009114307**
Option 3 ID : **441009114310**
Option 4 ID : **441009114309**

Section : **Hindi Language and Comprehension**

Q.1 ''शिक्षक____ छात्रों____ पाठ पढ़ाया।'' रिक्त स्थान की पूर्ति उचित कारक से करें।

Ans
✔ 1. ने, को
✘ 2. पर, को
✘ 3. से, से
✘ 4. को, के

Question ID : **4410091288082**
Option 1 ID : **4410095084186**
Option 2 ID : **4410095084187**
Option 3 ID : **4410095084184**
Option 4 ID : **4410095084185**

Q.2 'उतरा घाटी हुआ माटी' लोकोक्ति का सही अर्थ क्या होगा?

Ans
✔ 1. कार्य सम्पन्न हो जाने पर एहसान भूल जाना
✘ 2. पठारों से मैदान में भाग आना
✘ 3. पहाड़ी परिवेश से घृणा करना
✘ 4. पर्वतारोही हो जाना

Question ID : **4410091629456**
Option 1 ID : **4410096435912**
Option 2 ID : **4410096435911**
Option 3 ID : **4410096435913**
Option 4 ID : **4410096435910**

Q.3 सभी ने चित्रकार की कला की प्रशंसा की।

वाक्य में प्रयुक्त प्रशंसा शब्द का विलोम क्या है?

Ans
✘ 1. दीर्घकाय
✘ 2. त्याज्य
✘ 3. परिमित
✔ 4. भर्त्सना

Question ID : **4410091626332**
Option 1 ID : **4410096423718**
Option 2 ID : **4410096423720**
Option 3 ID : **4410096423717**
Option 4 ID : **4410096423719**

Q.4 निम्नलिखित वाक्य के रेखांकित शब्द का पर्यायवाची कौन-सा नहीं है?
'आज एक <u>महात्मा</u> द्वार पर भिक्षा के लिए आए।'

Ans
✘ 1. महापुरुष
✘ 2. महानुभाव
✘ 3. महाशय
✔ 4. आदमी

Question ID : **4410091530802**
Option 1 ID : **4410096046292**
Option 2 ID : **4410096046294**
Option 3 ID : **4410096046291**
Option 4 ID : **4410096046293**

Q.5 निम्नलिखित वाक्य के रिक्त स्थान में उचित क्रिया शब्द का प्रयोग करें -
'राहुल को रोज दूध पड़ता है।'

Ans
✔ 1. पीना
✘ 2. खाना
✘ 3. पी
✘ 4. पीता

Question ID : **4410091241975**
Option 1 ID : **4410094901248**
Option 2 ID : **4410094901251**
Option 3 ID : **4410094901249**
Option 4 ID : **4410094901250**

Q.6 उपयुक्त विशेषण का चयन कर वाक्य को पूर्ण कीजिए।
साक्षी का .....उज्ज्वल है।

Ans
✔ 1. भविष्य
✘ 2. पिछला
✘ 3. पुराना
✘ 4. प्राचीन

Question ID : **4410091300218**
Option 1 ID : **4410095133200**
Option 2 ID : **4410095133199**
Option 3 ID : **4410095133201**
Option 4 ID : **4410095133198**

Q.7 निम्नलिखित वाक्य को उचित कारक चिह्न से पूर्ण करें।
'अंशु स्कूल _____ आई है। '

Ans
✘ 1. पर
✘ 2. को
✔ 3. से
✘ 4. के द्वारा

Question ID : **4410091237755**
Option 1 ID : **4410094884549**
Option 2 ID : **4410094884551**
Option 3 ID : **4410094884548**
Option 4 ID : **4410094884550**

Q.8 निम्नलिखित वाक्य में रेखांकित शब्द के पर्यायवाची शब्द का चयन दिए गए विकल्पों में से कीजिए-
जंगल में 'मोर' नाचा किसने देखा?

Ans
✔ 1. केकी
✘ 2. पिक
✘ 3. कपोत
✘ 4. अम्बर

Question ID : **4410091618535**
Option 1 ID : **4410096393013**
Option 2 ID : **4410096393012**
Option 3 ID : **4410096393011**
Option 4 ID : **4410096393014**

QuickSarkari.com | WhatsApp Channel | Telegram: t.me/quick_sarkari

Q.9 दिए गए वाक्यों में से वर्तनी की दृष्टि से शुद्ध वाक्य का चयन कीजिए।

Ans
✗ 1. पूर्णिमा के चाँद देखे।
✓ 2. पूर्णिमा का चाँद देखें।
✗ 3. पुर्णिमा का चाँद देखें।
✗ 4. पूर्णिमा का चाद देखें।

Question ID : **4410091626445**
Option 1 ID : **4410096424154**
Option 2 ID : **4410096424152**
Option 3 ID : **4410096424153**
Option 4 ID : **4410096424155**

Q.10 उपयुक्त 'कारक' चिह्न का चयन कर रिक्त स्थान की पूर्ति कीजिए।
'राहुल साइकिल .....गिर पड़ा।'

Ans
✗ 1. ने
✗ 2. के
✓ 3. से
✗ 4. में

Question ID : **4410091524734**
Option 1 ID : **4410096022144**
Option 2 ID : **4410096022146**
Option 3 ID : **4410096022145**
Option 4 ID : **4410096022143**

Q.11 'घर का दीपक बुझ जाना' मुहावरे का सही अर्थ क्या होगा ?

Ans
✓ 1. निर्वंश हो जाना
✗ 2. कलह करना
✗ 3. अलग हो जाना
✗ 4. अमर्यादित व्यवहार करना

Question ID : **4410091629435**
Option 1 ID : **4410096435827**
Option 2 ID : **4410096435828**
Option 3 ID : **4410096435826**
Option 4 ID : **4410096435829**

Q.12 निम्नलिखित वाक्य में रेखांकित शब्द के पर्यायवाची शब्द का चयन दिए गए विकल्पों में से कीजिए-
गर्मियों में 'सूर्य' तपता है।

Ans
✗ 1. हिमांशु
✗ 2. रत्नाकर
✗ 3. सरिता
✓ 4. दिवाकर

Question ID : **4410091618529**
Option 1 ID : **4410096392989**
Option 2 ID : **4410096392987**
Option 3 ID : **4410096392990**
Option 4 ID : **4410096392988**

QuickSarkari.com | WhatsApp Channel | Telegram: t.me/quick_sarkari

Q.13 दिए गये वाक्यांश के लिए निम्नलिखित विकल्पों में से सार्थक शब्द का चयन करें-
जो ओज एवं तेज से परिपूर्ण हो

Ans
✗ 1. ओंकार
✓ 2. ओजस्वी
✗ 3. ओझल
✗ 4. औरस

Question ID : **4410091291772**
Option 1 ID : **4410095099125**
Option 2 ID : **4410095099123**
Option 3 ID : **4410095099122**
Option 4 ID : **4410095099124**

Q.14 'जो कठिनाई से मिलता हो'
उपर्युक्त वाक्यांश के लिए एक सार्थक शब्द चुनें –

Ans
✓ 1. दुर्लभ
✗ 2. दुर्भेद्य
✗ 3. कमतर
✗ 4. आसक्त

Question ID : **4410091308951**
Option 1 ID : **4410095167457**
Option 2 ID : **4410095167456**
Option 3 ID : **4410095167455**
Option 4 ID : **4410095167454**

Q.15 निम्नलिखित वाक्य के रेखांकित शब्द का विलोम बताएं -
'इस कार्य को करने के लिए बहुत परिश्रम की आवश्यकता है।'

Ans
✓ 1. विश्राम
✗ 2. मेहनत
✗ 3. प्रयास
✗ 4. सफलता

Question ID : **4410091530928**
Option 1 ID : **4410096046788**
Option 2 ID : **4410096046787**
Option 3 ID : **4410096046790**
Option 4 ID : **4410096046789**

QuickSarkari.com | WhatsApp Channel | Telegram: t.me/quick_sarkari

Comprehension:

निम्नलिखित गद्यांश के आधार पर प्रश्नों के उत्तर दें -

जिस व्यक्ति के **आदर्श**[1] उच्च होते हैं, उसके विचार स्वतः ही उच्च हो जाते हैं। **उच्च**[2] विचार वाले व्यक्ति ही आगे चलकर विश्व का नेतृत्व कर पाते हैं। अब सबसे बड़ा प्रश्न है कि सादगी वास्तव में है क्या?क्या रहन-सहन और वेशभूषा संबंधी मानक ही सादगी को परिभाषित करने के लिए पर्याप्त हैं? इसका उत्तर है नहीं, क्योंकि इनके **आधार**[3] पर सादगी को समझना काफी नहीं है। ऊपरी तौर पर देखा जाए तो रहन-सहन, खान-पान, पहनावे, कार्य-पद्धति आदि को सादगीपूर्ण जीवन के अंतर्गत शामिल किया जाता है, परंतु सादगी एक **व्यापक**[4] विषय है या कहें कि एक प्रकार से जीवन जीने की शैली है। किसी प्रकार के **आडंबर**[5] को अपनाए बिना जीवन जीना ही सादगी है,फिर चाहे वह रहन-सहन हो या कार्य-शैली।

SubQuestion No : 16

Q.16 गद्यांश के रेखांकित शब्द 1 का पर्यायवाची नहीं कौन-सा नहीं है?

Ans

✗ 1. नमूना

✗ 2. मानक

✗ 3. प्रतिमान

✓ 4. यथार्थ

Question ID : **4410091533766**
Option 1 ID : **4410096058233**
Option 2 ID : **4410096058231**
Option 3 ID : **4410096058234**
Option 4 ID : **4410096058232**

Comprehension:

निम्नलिखित गद्यांश के आधार पर प्रश्नों के उत्तर दें -

जिस व्यक्ति के **आदर्श**[1] उच्च होते हैं, उसके विचार स्वतः ही उच्च हो जाते हैं। **उच्च**[2] विचार वाले व्यक्ति ही आगे चलकर विश्व का नेतृत्व कर पाते हैं। अब सबसे बड़ा प्रश्न है कि सादगी वास्तव में है क्या?क्या रहन-सहन और वेशभूषा संबंधी मानक ही सादगी को परिभाषित करने के लिए पर्याप्त हैं? इसका उत्तर है नहीं, क्योंकि इनके **आधार**[3] पर सादगी को समझना काफी नहीं है। ऊपरी तौर पर देखा जाए तो रहन-सहन, खान-पान, पहनावे, कार्य-पद्धति आदि को सादगीपूर्ण जीवन के अंतर्गत शामिल किया जाता है, परंतु सादगी एक **व्यापक**[4] विषय है या कहें कि एक प्रकार से जीवन जीने की शैली है। किसी प्रकार के **आडंबर**[5] को अपनाए बिना जीवन जीना ही सादगी है,फिर चाहे वह रहन-सहन हो या कार्य-शैली।

SubQuestion No : 17

Q.17 गद्यांश के रेखांकित शब्द 2 का विलोम कौन-सा नहीं है?

Ans

✓ 1. ऊपर

✗ 2. नीचा

✗ 3. अनुच्च

✗ 4. निम्न

Question ID : **4410091533767**
Option 1 ID : **4410096058237**
Option 2 ID : **4410096058236**
Option 3 ID : **4410096058238**
Option 4 ID : **4410096058235**

QuickSarkari.com | WhatsApp Channel | Telegram: t.me/quick_sarkari

Comprehension:

निम्नलिखित गद्यांश के आधार पर प्रश्नों के उत्तर दें -

जिस व्यक्ति के **आदर्श**[1] उच्च होते हैं, उसके विचार स्वतः ही उच्च हो जाते हैं। **उच्च**[2] विचार वाले व्यक्ति ही आगे चलकर विश्व का नेतृत्व कर पाते हैं। अब सबसे बड़ा प्रश्न है कि सादगी वास्तव में है क्या?क्या रहन-सहन और वेशभूषा संबंधी मानक ही सादगी को परिभाषित करने के लिए पर्याप्त हैं? इसका उत्तर है नहीं, क्योंकि इनके **आधार**[3] पर सादगी को समझना काफी नहीं है। ऊपरी तौर पर देखा जाए तो रहन-सहन, खान-पान, पहनावे, कार्य-पद्धति आदि को सादगीपूर्ण जीवन के अंतर्गत शामिल किया जाता है, परंतु सादगी एक **व्यापक**[4] विषय है या कहें कि एक प्रकार से जीवन जीने की शैली है। किसी प्रकार के **आडंबर**[5] को अपनाए बिना जीवन जीना ही सादगी है,फिर चाहे वह रहन-सहन हो या कार्य-शैली।

SubQuestion No : 18

Q.18 गद्यांश के रेखांकित शब्द 3 का पर्यायवाची कौन-सा नहीं है?

Ans

✗ 1. अवलंब

✓ 2. नूतन

✗ 3. बुनियाद

✗ 4. सहारा

Question ID : **4410091533768**
Option 1 ID : **4410096058239**
Option 2 ID : **4410096058242**
Option 3 ID : **4410096058241**
Option 4 ID : **4410096058240**

Comprehension:

निम्नलिखित गद्यांश के आधार पर प्रश्नों के उत्तर दें -

जिस व्यक्ति के **आदर्श**[1] उच्च होते हैं, उसके विचार स्वतः ही उच्च हो जाते हैं। **उच्च**[2] विचार वाले व्यक्ति ही आगे चलकर विश्व का नेतृत्व कर पाते हैं। अब सबसे बड़ा प्रश्न है कि सादगी वास्तव में है क्या?क्या रहन-सहन और वेशभूषा संबंधी मानक ही सादगी को परिभाषित करने के लिए पर्याप्त हैं? इसका उत्तर है नहीं, क्योंकि इनके **आधार**[3] पर सादगी को समझना काफी नहीं है। ऊपरी तौर पर देखा जाए तो रहन-सहन, खान-पान, पहनावे, कार्य-पद्धति आदि को सादगीपूर्ण जीवन के अंतर्गत शामिल किया जाता है, परंतु सादगी एक **व्यापक**[4] विषय है या कहें कि एक प्रकार से जीवन जीने की शैली है। किसी प्रकार के **आडंबर**[5] को अपनाए बिना जीवन जीना ही सादगी है,फिर चाहे वह रहन-सहन हो या कार्य-शैली।

SubQuestion No : 19

Q.19 गद्यांश के रेखांकित शब्द 4 का अर्थ कौन-सा है ?

Ans

✗ 1. संकुचित

✗ 2. सिकुड़ना

✓ 3. फैला हुआ

✗ 4. अविस्तृत

Question ID : **4410091533769**
Option 1 ID : **4410096058245**
Option 2 ID : **4410096058246**
Option 3 ID : **4410096058243**
Option 4 ID : **4410096058244**

QuickSarkari.com | WhatsApp Channel | Telegram: t.me/quick_sarkari

Comprehension:

निम्नलिखित गद्यांश के आधार पर प्रश्नों के उत्तर दें -

जिस व्यक्ति के **आदर्श**[1] उच्च होते हैं, उसके विचार स्वतः ही उच्च हो जाते हैं। **उच्च**[2] विचार वाले व्यक्ति ही आगे चलकर विश्व का नेतृत्व कर पाते हैं। अब सबसे बड़ा प्रश्न है कि सादगी वास्तव में है क्या?क्या रहन-सहन और वेशभूषा संबंधी मानक ही सादगी को परिभाषित करने के लिए पर्याप्त हैं? इसका उत्तर है नहीं, क्योंकि इनके **आधार**[3] पर सादगी को समझना काफी नहीं है। ऊपरी तौर पर देखा जाए तो रहन-सहन, खान-पान, पहनावे, कार्य-पद्धति आदि को सादगीपूर्ण जीवन के अंतर्गत शामिल किया जाता है, परंतु सादगी एक **व्यापक**[4] विषय है या कहें कि एक प्रकार से जीवन जीने की शैली है। किसी प्रकार के **आडंबर**[5] को अपनाए बिना जीवन जीना ही सादगी है,फिर चाहे वह रहन-सहन हो या कार्य-शैली।

SubQuestion No : 20

Q.20 गद्यांश के रेखांकित शब्द 5 का विलोम बताएं -

Ans

✗ 1. बनावट

✗ 2. अनावश्यक

✗ 3. दिखावा

✓ 4. सादगी

Question ID : **4410091533770**
Option 1 ID : **4410096058249**
Option 2 ID : **4410096058250**
Option 3 ID : **4410096058247**
Option 4 ID : **4410096058248**

Section : **Discipline1**

Q.1 Which activity best demonstrates fine motor development in young children?

Ans

✗ 1. Kicking a ball

✓ 2. Tying shoelaces

✗ 3. Jumping rope

✗ 4. Running

Question ID : **4410091683353**
Option 1 ID : **4410096640338**
Option 2 ID : **4410096640340**
Option 3 ID : **4410096640341**
Option 4 ID : **4410096640339**

Q.2 शांति शिक्षा का प्राथमिक फोकस क्या है?

Ans

✗ 1. आर्थिक संवृद्धि

✗ 2. पाठ्यचर्या मूल्यांकन

✗ 3. संघर्ष का विस्तार

✓ 4. सद्भाव को बढ़ावा देना

Question ID : **4410091628260**
Option 1 ID : **4410096431212**
Option 2 ID : **4410096431213**
Option 3 ID : **4410096431211**
Option 4 ID : **4410096431210**

QuickSarkari.com | WhatsApp Channel | Telegram: t.me/quick_sarkari

Q.3 भारत के संविधान की उद्देशिका में "सामाजिक, आर्थिक और राजनैतिक न्याय" वाक्यांश का प्राथमिक उद्देश्य किसके लिए एक रूपरेखा स्थापित करना है?

Ans
✗ 1. प्रत्येक व्यक्ति के लिए समान परिणामों की गारंटी देना
✗ 2. लोगों के बीच धार्मिक समरूपता को बढ़ावा देना
✓ 3. एक कल्याणकारी राज्य की स्थापना करना और संरचनात्मक विषमताओं को दूर करना
✗ 4. समाज के सभी नागरिकों के बीच समान धन वितरण बनाए रखना

Question ID : **4410091543061**
Option 1 ID : **4410096095295**
Option 2 ID : **4410096095294**
Option 3 ID : **4410096095293**
Option 4 ID : **4410096095292**

Q.4 In a 5-year-old child who demonstrates proficient tower-building with blocks but exhibits difficulties catching a ball, this discrepancy most likely reflects which of the following?

Ans
✗ 1. Delays in both gross and fine motor skill domains
✓ 2. Typical uneven development across distinct motor skill areas
✗ 3. Deficiency in symbolic reasoning capacity
✗ 4. Delay in cognitive and language abilities

Question ID : **4410091541867**
Option 1 ID : **4410096090635**
Option 2 ID : **4410096090636**
Option 3 ID : **4410096090638**
Option 4 ID : **4410096090637**

Q.5 Educational Sociology is mainly concerned with the systematic study of:

Ans
✗ 1. Economic growth and national development
✗ 2. Administrative and political control of educational systems
✓ 3. Social activities, institutions, and processes influencing education
✗ 4. Individual psychological development of learners

Question ID : **4410091616933**
Option 1 ID : **4410096386646**
Option 2 ID : **4410096386647**
Option 3 ID : **4410096386645**
Option 4 ID : **4410096386644**

Q.6 What did the Preamble of the Indian Constitution declare India to be?

Ans
✗ 1. Socialist, Secular, Democratic Republic
✓ 2. Sovereign, Socialist, Democratic Nation
✗ 3. Unitary, Parliamentary, Constitutional State
✗ 4. Federal, Secular, Republican Government

Question ID : **4410091546774**
Option 1 ID : **4410096109964**
Option 2 ID : **4410096109966**
Option 3 ID : **4410096109965**
Option 4 ID : **4410096109967**

Q.7 During adolescence, which social development is most prominent?

Ans
✗ 1. Developing trust
✗ 2. Working in teams
✗ 3. Building attachment
✓ 4. Forming a sense of identity

Question ID : **4410091600265**
Option 1 ID : **4410096320748**
Option 2 ID : **4410096320749**
Option 3 ID : **4410096320747**
Option 4 ID : **4410096320750**

Q.8 A curriculum designer is selecting age-appropriate activities for 6-8-year-old children. Which combination best reflects their typical motor abilities?

Ans
✗ 1. Drawing person with 2 body parts and crawling
✓ 2. Riding a bicycle and tying shoelaces loosely
✗ 3. Standing unsupported and stacking 2 blocks
✗ 4. Keyboard proficiency and intricate crafts

Question ID : **4410091628269**
Option 1 ID : **4410096431247**
Option 2 ID : **4410096431246**
Option 3 ID : **4410096431248**
Option 4 ID : **4410096431249**

Q.9 Which approach best integrates peace education into the curriculum for long-term student transformation?

Ans
✗ 1. Conducting annual peace rallies
✗ 2. Offering peace education only as an extracurricular activity
✗ 3. Focusing solely on conflict resolution workshops
✓ 4. Embedding peace values across all subjects and activities

Question ID : **4410091608094**
Option 1 ID : **4410096351311**
Option 2 ID : **4410096351308**
Option 3 ID : **4410096351309**
Option 4 ID : **4410096351310**

Q.10 Which statement best captures the role of culture in socialization?

Ans
✗ 1. Culture functions independently of social processes
✓ 2. Culture provides the framework
✗ 3. Culture changes only through biological adaptation
✗ 4. Culture is irrelevant to learning social norms

Question ID : **4410091572444**
Option 1 ID : **4410096210713**
Option 2 ID : **4410096210714**
Option 3 ID : **4410096210715**
Option 4 ID : **4410096210712**

QuickSarkari.com | WhatsApp Channel | Telegram: t.me/quick_sarkari

Q.11 What does the term 'Secular' in the Preamble signify for the Indian state?

Ans
✔ 1. State treats religions equally.
✘ 2. The state follows a single religion.
✘ 3. The state promotes only indigenous religions.
✘ 4. The state restricts religious freedom.

Question ID : **4410091611259**
Option 1 ID : **4410096363892**
Option 2 ID : **4410096363891**
Option 3 ID : **4410096363894**
Option 4 ID : **4410096363893**

Q.12 According to Kohlberg's theory, which stage is characterized by children obeying rules to avoid punishment?

Ans
✘ 1. Autonomous stage
✔ 2. Pre-conventional stage
✘ 3. Conventional stage
✘ 4. Post-conventional stage

Question ID : **4410091604082**
Option 1 ID : **4410096335517**
Option 2 ID : **4410096335514**
Option 3 ID : **4410096335515**
Option 4 ID : **4410096335516**

Q.13 Which of the following best exemplifies a learner-centered approach in curriculum development?

Ans
✘ 1. Preparing learners primarily for social roles and responsibilities
✘ 2. Organising content mainly around traditional subjects
✘ 3. Delivering fixed content with standardised assessments
✔ 4. Shaping lessons by student interests and involvement

Question ID : **4410091543199**
Option 1 ID : **4410096095838**
Option 2 ID : **4410096095836**
Option 3 ID : **4410096095839**
Option 4 ID : **4410096095837**

Q.14 Which aspect most significantly characterizes the hierarchical structure of Indian society?

Ans
✘ 1. Religious uniformity across regions
✘ 2. Linguistic plurality as the sole determinant
✘ 3. Complete cultural homogeneity
✔ 4. Caste and class divisions are deeply embedded.

Question ID : **4410091630676**
Option 1 ID : **4410096440852**
Option 2 ID : **4410096440850**
Option 3 ID : **4410096440853**
Option 4 ID : **4410096440851**

QuickSarkari.com | WhatsApp Channel | Telegram: t.me/quick_sarkari

Q.15 A middle school student begins questioning family beliefs after discussions with friends and adapts some of his views based on peer suggestions. What does this scenario best represent in the context of social and emotional development?

Ans
✗ 1. Attachment behavior in infancy.
✗ 2. Empathy development in toddlerhood.
✓ 3. Peer influence on beliefs in middle childhood.
✗ 4. Initiative in group play during preschool years.

Question ID : **4410091682579**
Option 1 ID : **4410096637570**
Option 2 ID : **4410096637571**
Option 3 ID : **4410096637572**
Option 4 ID : **4410096637573**

Q.16 Which of the following is not a principle of development?

Ans
✗ 1. Continuity
✓ 2. Sequentially
✗ 3. Specific to general
✗ 4. Differentiality

Question ID : **4410091544042**
Option 1 ID : **4410096099267**
Option 2 ID : **4410096099268**
Option 3 ID : **4410096099269**
Option 4 ID : **4410096099270**

Q.17 How does the principle of justice in the Preamble influence educational policies in India?

Ans
✗ 1. It restricts education to only certain social groups
✗ 2. It mandates religious instruction as compulsory in all schools
✗ 3. It prioritizes military training over academic education
✓ 4. It encourages equal opportunities for all students regardless of background

Question ID : **4410091624540**
Option 1 ID : **4410096416697**
Option 2 ID : **4410096416696**
Option 3 ID : **4410096416698**
Option 4 ID : **4410096416695**

Q.18 In a classroom where students from diverse backgrounds learn together, which constitutional value is most directly promoted?

Ans
✗ 1. Sovereignty
✓ 2. Fraternity
✗ 3. Equality
✗ 4. Liberty

Question ID : **4410091627926**
Option 1 ID : **4410096429891**
Option 2 ID : **4410096429893**
Option 3 ID : **4410096429892**
Option 4 ID : **4410096429890**

Q.19 **According to Piaget's theory, which stage is characterized by the development of object permanence?**

Ans
✗ 1. Concrete operational stage
✓ 2. Sensorimotor stage
✗ 3. Formal operational stage
✗ 4. Preoperational stage

Question ID : **4410091692304**
Option 1 ID : **4410096675318**
Option 2 ID : **4410096675316**
Option 3 ID : **4410096675319**
Option 4 ID : **4410096675317**

Q.20 **Which of the following was a primary recommendation of the University Education Commission (Radha Krishnan Commission) of 1948-49 regarding university education in India?**

Ans
✓ 1. Emphasizing teaching and research to promote national development
✗ 2. Introducing compulsory vocational training at the school level
✗ 3. Centralizing all universities under direct central control
✗ 4. Making university education free for all enrolled students

Question ID : **4410091624653**
Option 1 ID : **4410096417143**
Option 2 ID : **4410096417144**
Option 3 ID : **4410096417146**
Option 4 ID : **4410096417145**

Section : **Discipline2**

Q.1 **Which of the following best describes a common pattern of behaviour in groups?**

Ans
✗ 1. Everyone works separately with no interaction
✓ 2. Members often share roles and responsibilities
✗ 3. Only one person makes all decisions
✗ 4. Members avoid communicating with each other

Question ID : **4410091607893**
Option 1 ID : **4410096350517**
Option 2 ID : **4410096350519**
Option 3 ID : **4410096350516**
Option 4 ID : **4410096350518**

Q.2 **What is the key purpose of peer tutoring in the classroom?**

Ans
✗ 1. Students read silently without discussion
✗ 2. Students listen passively to the teacher
✓ 3. Students help each other understand concepts
✗ 4. Students work individually without interaction

Question ID : **4410091542416**
Option 1 ID : **4410096092770**
Option 2 ID : **4410096092769**
Option 3 ID : **4410096092767**
Option 4 ID : **4410096092768**

Q.3 **The maxim "From Concrete to Abstract" is most effective because concrete experiences:**

Ans

✔ 1. Appeal to sensory understanding and remain longer in memory

✘ 2. Reduce the need for physical materials in early grades

✘ 3. Make abstract thinking unnecessary in higher classes

✘ 4. Promote imagination without the need for real objects

Question ID : **4410091572376**
Option 1 ID : **4410096210492**
Option 2 ID : **4410096210494**
Option 3 ID : **4410096210495**
Option 4 ID : **4410096210493**

Q.4 **A preschool child learns new words naturally by listening and interacting during play. This is an example of:**

Ans

✘ 1. Rote-memorization through reading the content

✔ 2. Language acquisition in pre-school years

✘ 3. Drilling of vocabulary

✘ 4. Formal grammar instruction

Question ID : **4410091568346**
Option 1 ID : **4410096194669**
Option 2 ID : **4410096194670**
Option 3 ID : **4410096194671**
Option 4 ID : **4410096194668**

Q.5 **Which of the following steps comes first when preparing a lesson plan?**

Ans

✘ 1. Conducting classroom activities

✘ 2. Selecting teaching aids

✔ 3. Identifying learning objectives

✘ 4. Evaluating student performance

Question ID : **4410091650766**
Option 1 ID : **4410096519181**
Option 2 ID : **4410096519179**
Option 3 ID : **4410096519178**
Option 4 ID : **4410096519180**

Q.6 **A curriculum committee is revising science instruction to better reflect the evolving nature of pedagogy. Which modification would most accurately apply contemporary concepts of pedagogical practice to real classroom settings?**

Ans

✘ 1. Imposing fixed instructional frameworks independent of learner development patterns

✘ 2. Restricting experimental work to standardized procedures outlined in official manuals

✔ 3. Embedding adaptive, inquiry-driven investigations responsive to emergent student reasoning

✘ 4. Maintaining uniform reliance on traditionally codified instructional sequences

Question ID : **4410091638065**
Option 1 ID : **4410096469857**
Option 2 ID : **4410096469856**
Option 3 ID : **4410096469855**
Option 4 ID : **4410096469854**

QuickSarkari.com | WhatsApp Channel | Telegram: t.me/quick_sarkari

Q.7 **A study examining Mindfulness-Based Stress Reduction (MBSR) for secondary teachers showed significant stress reduction. Which MBSR process component is primarily applied to transform impulsive reactivity?**

Ans
✗ 1. Focusing attention regulation

✗ 2. Developing bodily awareness skills

✓ 3. Enhancing emotional regulation

✗ 4. Transforming static self-perception

Question ID : **4410091549864**
Option 1 ID : **4410096122143**
Option 2 ID : **4410096122145**
Option 3 ID : **4410096122144**
Option 4 ID : **4410096122146**

Q.8 **What is a key characteristic of the preoperational stage in Piaget's theory related to mathematics learning?**

Ans
✗ 1. Children perform complex mental calculations

✗ 2. Children think abstractly about numbers

✓ 3. Children use symbols but struggle with logical operations

✗ 4. Children easily understand conservation of number

Question ID : **4410091704590**
Option 1 ID : **4410096723421**
Option 2 ID : **4410096723420**
Option 3 ID : **4410096723419**
Option 4 ID : **4410096723418**

Q.9 **How does the preamble to the Constitution of UNESCO relate to the role of education in shaping society's mindset?**

Ans
✗ 1. It recommends military alliances among nations

✓ 2. It emphasizes constructing peace in minds through education

✗ 3. It mandates economic reforms for world unity

✗ 4. It focuses on technological advancement for all

Question ID : **4410091643183**
Option 1 ID : **4410096489583**
Option 2 ID : **4410096489580**
Option 3 ID : **4410096489581**
Option 4 ID : **4410096489582**

Q.10 **How can including family input enhance the comprehensive assessment of a child's language and early literacy development?**

Ans
✗ 1. Family replaces the teacher's role in assessment

✓ 2. Family input provides context beyond school experiences

✗ 3. Family focuses only on correcting the child's language mistakes

✗ 4. Family has more knowledge about language learning

Question ID : **4410091623607**
Option 1 ID : **4410096413013**
Option 2 ID : **4410096413012**
Option 3 ID : **4410096413015**
Option 4 ID : **4410096413014**

QuickSarkari.com | WhatsApp Channel | Telegram: t.me/quick_sarkari

Q.11 **A pre-school teacher records a 4-year-old saying "I runned fast" but correctly saying "She brought the flowers". This consistent grammatical deviation primarily indicates the child is engaging in:**

Ans
✗ 1. Responding to positive reinforcement
✗ 2. Imitating adult speech models
✗ 3. Selective memory retention failure
✓ 4. Applying productive morpheme rules

Question ID : **4410091550516**
Option 1 ID : **4410096124526**
Option 2 ID : **4410096124523**
Option 3 ID : **4410096124524**
Option 4 ID : **4410096124525**

Q.12 **Priya, a student-teacher, notices that over several weeks of journaling, her entries reveal a shift from self-doubt to increased confidence in her teaching abilities. Which aspect of reflective journal writing is illustrated in Priya's experience?**

Ans
✓ 1. Developmental nature shown over time
✗ 2. Immediate emotional expression
✗ 3. One-time incident analysis
✗ 4. Focus on external feedback

Question ID : **4410091606156**
Option 1 ID : **4410096343649**
Option 2 ID : **4410096343648**
Option 3 ID : **4410096343651**
Option 4 ID : **4410096343650**

Q.13 **Which of the following options best demonstrates the application of 'learning to observe' in enhancing self-understanding during group interactions?**

Ans
✗ 1. Observing others' body language to predict their responses
✓ 2. Observing and reflecting on own emotions
✗ 3. Listening carefully to others' opinions without personal reflection
✗ 4. Focusing on achieving group objectives without distraction

Question ID : **4410091608212**
Option 1 ID : **4410096351775**
Option 2 ID : **4410096351773**
Option 3 ID : **4410096351772**
Option 4 ID : **4410096351774**

Q.14 **Bloom's Evaluation approach shifts planning emphasis from content flow to what central focus?**

Ans
✓ 1. Objective-centered teaching structure.
✗ 2. Content knowledge memorization.
✗ 3. Previous experience assimilation.
✗ 4. Flexible resource incorporation.

Question ID : **4410091557323**
Option 1 ID : **4410096151751**
Option 2 ID : **4410096151750**
Option 3 ID : **4410096151752**
Option 4 ID : **4410096151753**

QuickSarkari.com | WhatsApp Channel | Telegram: t.me/quick_sarkari

Q.15 What is a primary benefit of encouraging multilingualism in early childhood education?

Ans
✗ 1. It eliminates the need for assessment in schools.
✗ 2. It makes learning mathematics easier for all students.
✓ 3. It promotes cognitive flexibility and cultural understanding.
✗ 4. It ensures all children speak only the national language.

Question ID : **4410091641510**
Option 1 ID : **4410096483153**
Option 2 ID : **4410096483152**
Option 3 ID : **4410096483151**
Option 4 ID : **4410096483154**

Q.16 What is the primary change in the teacher's role when using multilingualism as a resource?

Ans
✗ 1. The teacher becomes the sole authority and knowledge-giver
✓ 2. The teacher acts as an observer, facilitator, and learner
✗ 3. The teacher eliminates the use of textbooks entirely
✗ 4. The teacher only focuses on correcting errors

Question ID : **4410091572383**
Option 1 ID : **4410096210520**
Option 2 ID : **4410096210521**
Option 3 ID : **4410096210523**
Option 4 ID : **4410096210522**

Q.17 What is the primary purpose of maintaining reflective journals for teachers?

Ans
✗ 1. To compile lesson plans for future classroom use
✗ 2. To document student behaviour and discipline issues
✓ 3. To monitor professional growth and self-development
✗ 4. To record daily classroom events in detail

Question ID : **4410091681570**
Option 1 ID : **4410096633661**
Option 2 ID : **4410096633660**
Option 3 ID : **4410096633658**
Option 4 ID : **4410096633659**

Q.18 When examining the contemporary relevance of an iconic cultural figure, which factor is most important in understanding their sustained influence on society?

Ans
✓ 1. The adaptability of their ideals to current issues
✗ 2. The strict preservation of original customs
✗ 3. The absence of critique in modern discussions
✗ 4. The number of statues built in their honor

Question ID : **4410091678960**
Option 1 ID : **4410096624049**
Option 2 ID : **4410096624051**
Option 3 ID : **4410096624052**
Option 4 ID : **4410096624050**

QuickSarkari.com | WhatsApp Channel | Telegram: t.me/quick_sarkari

Q.19 **In a multicultural society, a curriculum designer aims to enhance social cohesion by leveraging socialization. Which strategy most effectively addresses both the transmission of shared values and adaptation to diverse cultural backgrounds?**

Ans
✔ 1. Incorporating collaborative projects and intercultural peer interactions into lessons

✘ 2. Emphasizing subject-specific content without group activities

✘ 3. Focusing on teacher-centered lectures and standardized testing methods

✘ 4. Integrating national symbols and traditional stories into textbooks

Question ID : **4410091630349**
Option 1 ID : **4410096439546**
Option 2 ID : **4410096439549**
Option 3 ID : **4410096439548**
Option 4 ID : **4410096439547**

Q.20 **Why are bilingual children reported to have a smaller number of words in each language compared to monolinguals?**

Ans
✘ 1. Because they have limited cognitive capacity.

✔ 2. Because their vocabulary is distributed across two languages.

✘ 3. Because they learn fewer words overall.

✘ 4. Because they struggle with language development.

Question ID : **4410091654386**
Option 1 ID : **4410096532555**
Option 2 ID : **4410096532553**
Option 3 ID : **4410096532554**
Option 4 ID : **4410096532552**

Section : **Discipline3**

Q.1 **Which concept is defined as a social system where power is historically held by males, systematically disadvantaging women, and perpetuating unequal social relations?**

Ans
✘ 1. Matrilineal descent

✘ 2. Egalitarian principle

✘ 3. Matriarchal structure

✔ 4. Patriarchal system

Question ID : **4410091558756**
Option 1 ID : **4410096157413**
Option 2 ID : **4410096157416**
Option 3 ID : **4410096157414**
Option 4 ID : **4410096157415**

QuickSarkari.com | WhatsApp Channel | Telegram: t.me/quick_sarkari

Q.2 **While finalizing a policy document, a team member writes, 'Employees should ensure he completes the training.' Which alternative best aligns with both grammatical correctness and modern appropriateness for professional communication?**

Ans

✔ 1. Employees should ensure they complete the training.

✘ 2. Each employee should ensure they completes the training.

✘ 3. All employees should ensure he completes the training.

✘ 4. Employees should ensure he completes the training.

Question ID : **4410091628653**
Option 1 ID : **4410096432758**
Option 2 ID : **4410096432760**
Option 3 ID : **4410096432761**
Option 4 ID : **4410096432759**

Q.3 **Why is it important for teachers to recognize their own biases before entering the classroom?**

Ans

✘ 1. To improve mastery of subject content

✔ 2. To prevent reinforcing social prejudices

✘ 3. To maintain classroom discipline

✘ 4. To speed up lesson planning

Question ID : **4410091682942**
Option 1 ID : **4410096639022**
Option 2 ID : **4410096639025**
Option 3 ID : **4410096639023**
Option 4 ID : **4410096639024**

Q.4 **How does the concept of readiness affect children's learning in elementary classrooms?**

Ans

✔ 1. Children learn best when they are developmentally prepared

✘ 2. Children learn best when forced to memorize information quickly

✘ 3. Children learn best when given only theoretical instruction

✘ 4. Children learn best when they imitate their classmates

Question ID : **4410091641766**
Option 1 ID : **4410096484137**
Option 2 ID : **4410096484138**
Option 3 ID : **4410096484139**
Option 4 ID : **4410096484140**

Q.5 **In linguistic research on vocabulary acquisition, what fundamentally distinguishes active vocabulary from passive vocabulary in terms of depth of knowledge required for effective use?**

Ans

✘ 1. Passive vocabulary prioritizes rote memorization for output whereas active focuses solely on receptive exposure without productive application demands

✘ 2. Both types equally emphasize immediate retrieval speed, differing only in frequency of auditory input rather than engagement level or skill application

✘ 3. Active vocabulary demands minimal contextual recognition while passive requires exhaustive recall for spontaneous production in varied communicative scenarios

✔ 4. Active vocabulary involves confident production in speech or writing with full mastery of meaning, usage, and pronunciation beyond mere comprehension

Question ID : **4410091560904**
Option 1 ID : **4410096165828**
Option 2 ID : **4410096165829**
Option 3 ID : **4410096165826**
Option 4 ID : **4410096165827**

Q.6 What is a key feature of the lecture method of teaching mathematics?

Ans

✗ 1. Students conduct experiments

✗ 2. Students play mathematical games

✗ 3. Students actively participate

✓ 4. Students remain passive listeners

Question ID : **4410091682251**
Option 1 ID : **4410096636304**
Option 2 ID : **4410096636305**
Option 3 ID : **4410096636302**
Option 4 ID : **4410096636303**

Q.7 How does an Advanced Teacher differ from a Proficient Teacher, according to the National Professional Standards for Teachers?

Ans

✗ 1. Advanced Teachers have minimal interaction with other stakeholders

✗ 2. Advanced Teachers do not prefer to reflect on learner contexts

✓ 3. Advanced Teachers apply new curricular content to address diverse needs

✗ 4. Advanced Teachers focus mainly on textbook and syllabus completion

Question ID : **4410091609062**
Option 1 ID : **4410096355166**
Option 2 ID : **4410096355167**
Option 3 ID : **4410096355164**
Option 4 ID : **4410096355165**

Q.8 In pedagogical leadership, who primarily fosters positive school culture?

Ans

✓ 1. School leader

✗ 2. Student council

✗ 3. Instructional coach

✗ 4. Administrative staff

Question ID : **4410091635101**
Option 1 ID : **4410096458445**
Option 2 ID : **4410096458446**
Option 3 ID : **4410096458443**
Option 4 ID : **4410096458444**

Q.9 When building a school from scratch, why is teacher identity important for shaping school culture?

Ans

✓ 1. Models values and behaviors

✗ 2. Teacher identity requires the use of uniforms

✗ 3. Teacher identity sets the school timetable

✗ 4. Teacher identity determines classroom size

Question ID : **4410091606816**
Option 1 ID : **4410096346249**
Option 2 ID : **4410096346250**
Option 3 ID : **4410096346251**
Option 4 ID : **4410096346248**

QuickSarkari.com | WhatsApp Channel | Telegram: t.me/quick_sarkari

Q.10 **A teacher designs a lesson where students solve problems collaboratively, considering each learner's background and abilities. Which principle of effective pedagogy is best demonstrated here?**

Ans
✗ 1. Relying on student self-efficacy alone

✓ 2. Differentiation based on multiple learning factors

✗ 3. Exclusive focus on environmental resources

✗ 4. Uniform instruction for all students

Question ID : **4410091683642**
Option 1 ID : **4410096641497**
Option 2 ID : **4410096641495**
Option 3 ID : **4410096641494**
Option 4 ID : **4410096641496**

Q.11 **निम्नलिखित में से कौन-सा कथन, शास्त्रीय अनुबंधन को प्रयास-और-त्रुटि अधिगम से सही तरह से अलग करता है?**

Ans
✗ 1. शास्त्रीय अनुबंधन में त्रुटियों को सुधारने के लिए चेतन तर्क की आवश्यकता होती है, जबकि प्रयास-और-त्रुटि में स्वचालित प्रतिवर्त शामिल हैं।

✗ 2. शास्त्रीय अनुबंधन लक्ष्यों को प्राप्त करने के लिए स्वैच्छिक क्रियाओं पर निर्भर करता है, जबकि प्रयास-और-त्रुटि पूर्णत: प्रतिवर्ती अनुक्रिया है।

✓ 3. शास्त्रीय अनुबंधन में उद्दीपन के बीच संबंध स्थापित करना शामिल होता है, जबकि प्रयास-और-त्रुटि किसी समस्या को हल करने के लिए बार-बार प्रयास करने पर निर्भर होता है।

✗ 4. शास्त्रीय अनुबंधन तथा प्रयास-और-त्रुटि अधिगम का उपागम एकसमान है और इनके अनुप्रयोग में कोई अंतर नहीं है।

Question ID : **4410091546563**
Option 1 ID : **4410096109133**
Option 2 ID : **4410096109132**
Option 3 ID : **4410096109131**
Option 4 ID : **4410096109134**

Q.12 **Which outcome best reflects the goal of developing a positive attitude toward mathematics in primary school?**

Ans
✗ 1. A student avoids asking questions

✗ 2. A student memorizes all formulas

✓ 3. A student enjoys learning math

✗ 4. A student always finishes math homework first

Question ID : **4410091695549**
Option 1 ID : **4410096688200**
Option 2 ID : **4410096688199**
Option 3 ID : **4410096688197**
Option 4 ID : **4410096688198**

Q.13 **Mr. Singh incorporates play-based, multilingual activities in his primary classroom, as recommended by NEP 2020. Which aspect of his professional responsibilities is he most directly addressing?**

Ans
✗ 1. He is prioritizing administrative duties over classroom engagement.

✗ 2. He is limiting his role to delivering lectures without interaction.

✓ 3. He is promoting equity and adapting instruction to meet diverse learner needs.

✗ 4. He is enforcing uniform teaching strategies for all students regardless of background.

Question ID : **4410091607577**
Option 1 ID : **4410096349279**
Option 2 ID : **4410096349278**
Option 3 ID : **4410096349276**
Option 4 ID : **4410096349277**

QuickSarkari.com | WhatsApp Channel | Telegram: t.me/quick_sarkari

Q.14 A student attempts several ways to arrange blocks to form a stable tower. After multiple failed attempts, the child finally discovers a balanced structure. This learning reflects:

Ans
✗ 1. Classical learning
✗ 2. Insight learning
✓ 3. Trial-and-error learning
✗ 4. Observational learning

Question ID : **4410091546997**
Option 1 ID : **4410096110860**
Option 2 ID : **4410096110858**
Option 3 ID : **4410096110859**
Option 4 ID : **4410096110861**

Q.15 If a student understands the word 'meticulous' when reading but never uses it while speaking, in which vocabulary is it included?

Ans
✗ 1. Technical vocabulary
✗ 2. Academic vocabulary
✗ 3. Active vocabulary
✓ 4. Passive vocabulary

Question ID : **4410091621171**
Option 1 ID : **4410096403492**
Option 2 ID : **4410096403490**
Option 3 ID : **4410096403489**
Option 4 ID : **4410096403491**

Q.16 A teacher encourages students to find multiple solutions to one problem. This develops:

Ans
✗ 1. Rote memorization
✗ 2. Learning long definitions
✓ 3. Developing reasoning
✗ 4. Avoiding concrete materials

Question ID : **4410091568368**
Option 1 ID : **4410096194756**
Option 2 ID : **4410096194758**
Option 3 ID : **4410096194757**
Option 4 ID : **4410096194759**

Q.17 What does the suffix battle between '-ise' and '-ize' illustrate about English spelling?

Ans
✗ 1. The role of dictionaries in standardizing language
✗ 2. The lack of absolutes in English language rules
✗ 3. The influence of style guides on spelling
✓ 4. The emergence of American English spellings

Question ID : **4410091655228**
Option 1 ID : **4410096535880**
Option 2 ID : **4410096535879**
Option 3 ID : **4410096535877**
Option 4 ID : **4410096535878**

QuickSarkari.com | WhatsApp Channel | Telegram: t.me/quick_sarkari

Q.18 **According to the teacher's roles, rights, and responsibilities in the modern context, how does a teacher contribute to raising awareness about community health?**

Ans
✗ 1. Restricting communication with parents and family about health

✗ 2. Focusing only on examination preparation and academic achievement

✗ 3. Limiting teaching responsibilities strictly to classroom academic instruction

✓ 4. Teachers can provide information to students and parents on how to stay healthy

Question ID : **4410091603869**
Option 1 ID : **4410096334665**
Option 2 ID : **4410096334667**
Option 3 ID : **4410096334664**
Option 4 ID : **4410096334666**

Q.19 **Which role of a teacher involves analysing one's own teaching practices, experimenting with new methods, and continuously trying to improve professional skills?**

Ans
✗ 1. Teacher as an Evaluator

✓ 2. Teacher as a Reflective Professional

✗ 3. Teacher as a Model

✗ 4. Teacher as a Counsellor

Question ID : **4410091579448**
Option 1 ID : **4410096239088**
Option 2 ID : **4410096239087**
Option 3 ID : **4410096239086**
Option 4 ID : **4410096239085**

Q.20 **What is the main focus of Pedagogical leadership in schools?**

Ans
✗ 1. Managing school finances and maintaining the physical infrastructure only

✗ 2. Supervising administrative staff without involvement in classroom teaching

✓ 3. Improving teaching practices and enhancing student learning outcomes effectively

✗ 4. Organizing school events and extracurricular activities exclusively

Question ID : **4410091547393**
Option 1 ID : **4410096112438**
Option 2 ID : **4410096112436**
Option 3 ID : **4410096112437**
Option 4 ID : **4410096112435**

Section : **Discipline4**

Q.1 **In an upper primary lesson, students examine how local water scarcity influences daily routines and family dynamics. They use observation and interviews, then discuss possible solutions. Which scope and method combination is most evident here?**

Ans
✗ 1. Secondary: Specialized disciplines with debates and discussions

✓ 2. Upper Primary: Social Science with observation and interviews

✗ 3. Primary: EVS with observation and classification methods

✗ 4. Higher Secondary: Career preparation and vocational training

Question ID : **4410091633262**
Option 1 ID : **4410096451164**
Option 2 ID : **4410096451162**
Option 3 ID : **4410096451163**
Option 4 ID : **4410096451165**

QuickSarkari.com | WhatsApp Channel | Telegram: t.me/quick_sarkari

Q.2 In the context of using community resources as low-cost teaching materials, which member would be most suitable for demonstrating measurement of length in construction using standard tools like a measuring tape and scale?

Ans
✗ 1. Tailor
✓ 2. Carpenter
✗ 3. Iron smith
✗ 4. Goldsmith

Question ID : **4410091658988**
Option 1 ID : **4410096550378**
Option 2 ID : **4410096550377**
Option 3 ID : **4410096550380**
Option 4 ID : **4410096550379**

Q.3 Which process involves reducing government control over education institutions?

Ans
✓ 1. Liberalization
✗ 2. Globalization
✗ 3. Privatization
✗ 4. Centralization

Question ID : **4410091636562**
Option 1 ID : **4410096464125**
Option 2 ID : **4410096464127**
Option 3 ID : **4410096464126**
Option 4 ID : **4410096464128**

Q.4 A primary English teacher wants to use ICT to encourage collaboration. Which strategy is most effective?

Ans
✗ 1. Giving individual quizzes through ICT
✗ 2. Showing lessons through video lectures
✓ 3. Using online platforms for group projects
✗ 4. Assigning reading with e-books

Question ID : **4410091623970**
Option 1 ID : **4410096414461**
Option 2 ID : **4410096414463**
Option 3 ID : **4410096414460**
Option 4 ID : **4410096414462**

Q.5 Which of the following is an objective of Environmental Studies for children?

Ans
✗ 1. Learning a foreign language
✗ 2. Cooking traditional food
✓ 3. Observation and Reporting
✗ 4. Playing video games

Question ID : **4410091632566**
Option 1 ID : **4410096448392**
Option 2 ID : **4410096448393**
Option 3 ID : **4410096448390**
Option 4 ID : **4410096448391**

QuickSarkari.com | WhatsApp Channel | Telegram: t.me/quick_sarkari

Q.6 **NGOs are particularly effective in schools when they:**

Ans
✔ 1. Align their interventions with school goals
✘ 2. Focus only on short-term measurable outputs
✘ 3. Substitute teachers in regular classrooms
✘ 4. Operate independently of school leadership

Question ID : **4410091583166**
Option 1 ID : **4410096254015**
Option 2 ID : **4410096254013**
Option 3 ID : **4410096254014**
Option 4 ID : **4410096254012**

Q.7 **What is a key feature of pedagogical leadership in schools?**

Ans
✘ 1. Decision-making authority
✘ 2. Infrastructure planning
✘ 3. Financial management
✔ 4. Focus on teaching quality

Question ID : **4410091631473**
Option 1 ID : **4410096444097**
Option 2 ID : **4410096444099**
Option 3 ID : **4410096444098**
Option 4 ID : **4410096444096**

Q.8 **Which of the following languages was NOT originally taught using the Grammar Translation Method?**

Ans
✘ 1. Latin
✘ 2. Greek
✘ 3. Sanskrit
✔ 4. Mandarin

Question ID : **4410091624742**
Option 1 ID : **4410096417499**
Option 2 ID : **4410096417500**
Option 3 ID : **4410096417502**
Option 4 ID : **4410096417501**

Q.9 **Which of the following reflects a commonly recognised impact of globalisation on education?**

Ans
✘ 1. Uniform teaching methods
✔ 2. Expansion of learner choices
✘ 3. Abolition of examinations
✘ 4. Elimination of social inequalities

Question ID : **4410091690133**
Option 1 ID : **4410096666821**
Option 2 ID : **4410096666820**
Option 3 ID : **4410096666819**
Option 4 ID : **4410096666818**

QuickSarkari.com | WhatsApp Channel | Telegram: t.me/quick_sarkari

Q.10 A teacher designs a field trip to a local nursery to link plant life cycle (Science) with traditional medicine preparation (Social Science). Which primary EVS theme is being applied?

Ans
✔ 1. Things We Make and Do
✘ 2. Family and Friends
✘ 3. Food
✘ 4. Travel

Question ID : **4410091550873**
Option 1 ID : **4410096125769**
Option 2 ID : **4410096125767**
Option 3 ID : **4410096125768**
Option 4 ID : **4410096125770**

Q.11 In a lesson on 'Festivals of India,' a teacher starts by discussing local festivals, then introduces less familiar festivals from other regions, and finally asks students to identify common themes. Which principle of lesson planning does this illustrate?

Ans
✘ 1. Integration: Links prior knowledge, skills/values.
✘ 2. Flexibility: Adaptable to class response.
✔ 3. Psychological Sequence: Known-to-unknown, simple-complex.
✘ 4. Comprehensive: Covers intro-body-closure, aids/assessment.

Question ID : **4410091633240**
Option 1 ID : **4410096451074**
Option 2 ID : **4410096451076**
Option 3 ID : **4410096451077**
Option 4 ID : **4410096451075**

Q.12 Which function do textbooks primarily serve in the teaching-learning process?

Ans
✘ 1. Limit curriculum flexibility
✘ 2. Replace teacher instruction
✔ 3. Provide structured content
✘ 4. Eliminate assessments

Question ID : **4410091638431**
Option 1 ID : **4410096471440**
Option 2 ID : **4410096471439**
Option 3 ID : **4410096471438**
Option 4 ID : **4410096471441**

Q.13 What is one benefit of gathering students' background knowledge before class?

Ans
✘ 1. It replaces the need for objectives.
✘ 2. It reduces student engagement.
✘ 3. It delays the lesson.
✔ 4. It helps to shape the introduction and activities.

Question ID : **4410091608639**
Option 1 ID : **4410096353478**
Option 2 ID : **4410096353479**
Option 3 ID : **4410096353476**
Option 4 ID : **4410096353477**

QuickSarkari.com | WhatsApp Channel | Telegram: t.me/quick_sarkari

Q.14 **A teacher integrates role-plays and brainstorming sessions, adjusting her lesson when students seem disengaged. What facilitation techniques is she primarily utilizing?**

Ans

✗ 1. Solo assignments and silent study periods

✗ 2. Test-based assessment and grading

✓ 3. Adaptability and engagement strategies

✗ 4. Fixed lecture format and content delivery

Question ID : **4410091632976**
Option 1 ID : **4410096450025**
Option 2 ID : **4410096450023**
Option 3 ID : **4410096450022**
Option 4 ID : **4410096450024**

Q.15 **What is the main benefit of allowing students to revise their writing based on comments?**

Ans

✗ 1. It reduces teacher workload

✗ 2. It increases the word count

✗ 3. It makes grading easier

✓ 4. It supports internalising corrections

Question ID : **4410091689701**
Option 1 ID : **4410096665141**
Option 2 ID : **4410096665139**
Option 3 ID : **4410096665140**
Option 4 ID : **4410096665138**

Q.16 **A teacher integrates stories, diagrams, and hands-on experiments while teaching EVS. This reflects:**

Ans

✓ 1. Scientific, integrated and inclusive approach

✗ 2. Structured subject-centered methodology

✗ 3. Curriculum-aligned assessment focus

✗ 4. Multimodal content delivery strategy

Question ID : **4410091570024**
Option 1 ID : **4410096201098**
Option 2 ID : **4410096201100**
Option 3 ID : **4410096201099**
Option 4 ID : **4410096201097**

Q.17 **How do new social values such as equality and justice emerge in the modern social system?**

Ans

✗ 1. By avoiding technological progress in the world

✗ 2. From lack of diversity in choice of practices

✗ 3. Through outdated social customs of community

✓ 4. As outcomes of development and modernization

Question ID : **4410091634013**
Option 1 ID : **4410096454148**
Option 2 ID : **4410096454149**
Option 3 ID : **4410096454146**
Option 4 ID : **4410096454147**

QuickSarkari.com | WhatsApp Channel | Telegram: t.me/quick_sarkari

Q.18 **Which skill is least developed when using the Grammar Translation Method in English teaching?**

Ans
✗ 1. Writing
✗ 2. Reading
✗ 3. Listening
✓ 4. Speaking

Question ID : **4410091687170**
Option 1 ID : **4410096655479**
Option 2 ID : **4410096655478**
Option 3 ID : **4410096655480**
Option 4 ID : **4410096655481**

Q.19 **Why might the Grammar-Translation Method be suitable for large or mixed-ability classes?**

Ans
✗ 1. It focuses on speaking activities
✓ 2. It allows the teacher to explain concepts
✗ 3. It prioritizes listening comprehension
✗ 4. It encourages student independence

Question ID : **4410091604800**
Option 1 ID : **4410096338364**
Option 2 ID : **4410096338366**
Option 3 ID : **4410096338367**
Option 4 ID : **4410096338365**

Q.20 **What is a key issue with evaluating students using only closed-ended questions?**

Ans
✗ 1. Reduces grading time
✗ 2. Improves communication skills
✓ 3. Limits depth of response
✗ 4. Encourages creativity

Question ID : **4410091633512**
Option 1 ID : **4410096452153**
Option 2 ID : **4410096452152**
Option 3 ID : **4410096452150**
Option 4 ID : **4410096452151**

Section : **Discipline5**

Q.1 **Which of the following activities is an example of recreational mathematics?**

Ans
✗ 1. Copying formulas from the textbook
✗ 2. Rewriting multiplication tables repeatedly
✗ 3. Listening to a lecture without interaction
✓ 4. Solving a Sudoku puzzle

Question ID : **4410091553720**
Option 1 ID : **4410096137553**
Option 2 ID : **4410096137554**
Option 3 ID : **4410096137552**
Option 4 ID : **4410096137551**

QuickSarkari.com | WhatsApp Channel | Telegram: t.me/quick_sarkari

Q.2 What is the smallest counting (natural) number?

Ans
✗ 1. 0
✓ 2. 1
✗ 3. 2
✗ 4. 3

Question ID : **4410091691276**
Option 1 ID : **4410096671294**
Option 2 ID : **4410096671296**
Option 3 ID : **4410096671295**
Option 4 ID : **4410096671297**

Q.3 Which method involves reasoning from specific observations to general principles?

Ans
✗ 1. Hypothesis testing
✓ 2. Inductive reasoning
✗ 3. Verification
✗ 4. Deductive reasoning

Question ID : **4410091633771**
Option 1 ID : **4410096453176**
Option 2 ID : **4410096453175**
Option 3 ID : **4410096453177**
Option 4 ID : **4410096453174**

Q.4 A language teacher analyzes mid-semester quiz results, subsequently forming remedial groups and adjusting the pace of instruction. This utilization of evaluation data primarily serves which purpose?

Ans
✓ 1. Feedback for pedagogical change
✗ 2. Measurement of learning extent
✗ 3. Numerical summary of achievement
✗ 4. Certification of terminal skill

Question ID : **4410091551326**
Option 1 ID : **4410096127628**
Option 2 ID : **4410096127627**
Option 3 ID : **4410096127630**
Option 4 ID : **4410096127629**

Q.5 Which of the following best explains why science kits are considered essential in science education?

Ans
✓ 1. They provide hands-on learning that connects theory to practice.
✗ 2. They focus solely on increasing classroom discipline.
✗ 3. They only provide assessment tools for teachers.
✗ 4. They mainly improve communication skills.

Question ID : **4410091616066**
Option 1 ID : **4410096383202**
Option 2 ID : **4410096383205**
Option 3 ID : **4410096383204**
Option 4 ID : **4410096383203**

QuickSarkari.com | WhatsApp Channel | Telegram: t.me/quick_sarkari

Q.6 **A science educator wants to foster scientific thinking by engaging students in an activity that requires them to generate hypotheses and then design experiments to test these ideas. Which teaching approach best exemplifies the nature of science education in this context?**

Ans

✔ 1. Inquiry-based experimentation with student input

✘ 2. Memorization of factual content

✘ 3. Structured demonstration with teacher explanation

✘ 4. Collaborative reading of textbook passages

Question ID : **4410091617010**
Option 1 ID : **4410096386948**
Option 2 ID : **4410096386950**
Option 3 ID : **4410096386947**
Option 4 ID : **4410096386949**

Q.7 **What does using a checklist to assess pronunciation, vocabulary use, and fluency during a speech activity help ensure?**

Ans

✔ 1. Systematic assessment

✘ 2. Memorization of content

✘ 3. Random evaluation

✘ 4. Subjective judgment

Question ID : **4410091692774**
Option 1 ID : **4410096677141**
Option 2 ID : **4410096677142**
Option 3 ID : **4410096677140**
Option 4 ID : **4410096677139**

Q.8 **How can curriculum and classroom processes unintentionally reinforce gender stereotypes?**

Ans

✘ 1. By including stories with diverse protagonists

✘ 2. By encouraging equal participation

✔ 3. By assigning roles based on traditional gender norms

✘ 4. By promoting critical discussion of gender

Question ID : **4410091639002**
Option 1 ID : **4410096473574**
Option 2 ID : **4410096473576**
Option 3 ID : **4410096473573**
Option 4 ID : **4410096473575**

Q.9 **Which of the following is an example of a "mathematical puzzle" commonly used in recreational teaching?**

Ans

✘ 1. A timed multiplication drill

✘ 2. A standard classroom lecture

✔ 3. A logic-based challenge like soduko

✘ 4. A multiplayer board game like Monopoly

Question ID : **4410091606207**
Option 1 ID : **4410096343855**
Option 2 ID : **4410096343854**
Option 3 ID : **4410096343853**
Option 4 ID : **4410096343852**

Q.10 If a person has both hearing and visual impairments causing severe communication problems, how is this condition classified under the RPwD Act, 2016?

Ans
✗ 1. Cerebral Palsy
✗ 2. Specific Learning Disabilities
✗ 3. Speech and Language Disability
✓ 4. Deaf Blindness

Question ID : **4410091633910**
Option 1 ID : **4410096453732**
Option 2 ID : **4410096453730**
Option 3 ID : **4410096453733**
Option 4 ID : **4410096453731**

Q.11 How can teachers best address the needs of students with specific learning disabilities when designing assessments?

Ans
✗ 1. Requiring only written examinations for evaluation
✗ 2. Expecting traditional essay-based answers exclusively
✓ 3. Offering alternative assessment methods for demonstration
✗ 4. Mandating uniform timed testing conditions

Question ID : **4410091662973**
Option 1 ID : **4410096565186**
Option 2 ID : **4410096565188**
Option 3 ID : **4410096565185**
Option 4 ID : **4410096565187**

Q.12 The affective domain in Bloom's taxonomy primarily focuses on which aspect(s) of learning?

Ans
✗ 1. Language proficiency
✗ 2. Knowledge and understanding
✓ 3. Emotions and attitudes
✗ 4. Physical coordination

Question ID : **4410091623659**
Option 1 ID : **4410096413219**
Option 2 ID : **4410096413216**
Option 3 ID : **4410096413217**
Option 4 ID : **4410096413218**

Q.13 In Bloom's taxonomy, which combination of domains would be targeted by a project that requires students to research, present, and reflect on historical events?

Ans
✗ 1. Psychomotor and musical domains only
✗ 2. Affective and logical domains only
✓ 3. Cognitive, affective, and psychomotor domains
✗ 4. Cognitive and linguistic domains only

Question ID : **4410091641192**
Option 1 ID : **4410096481923**
Option 2 ID : **4410096481924**
Option 3 ID : **4410096481921**
Option 4 ID : **4410096481922**

QuickSarkari.com | WhatsApp Channel | Telegram: t.me/quick_sarkari

Q.14 How can a teacher best address gender bias in classroom resources?

Ans
- ✔ 1. Audit textbooks for bias
- ✘ 2. Set gender quotas for leaders
- ✘ 3. Equalize visual genders
- ✘ 4. Train on gender roles

Question ID : **4410091635753**
Option 1 ID : **4410096460999**
Option 2 ID : **4410096461002**
Option 3 ID : **4410096461001**
Option 4 ID : **4410096461000**

Q.15 In a class 6 science lesson, students are asked to float eggs in salt water and record their observations, then discuss why some eggs sink and others float. Which aspect of the nature of science is best illustrated by this activity?

Ans
- ✔ 1. Empirical evidence-based investigation
- ✘ 2. Fixed theoretical models
- ✘ 3. Authority-based explanation
- ✘ 4. Rote memorization of facts

Question ID : **4410091609277**
Option 1 ID : **4410096356032**
Option 2 ID : **4410096356035**
Option 3 ID : **4410096356033**
Option 4 ID : **4410096356034**

Q.16 When students with disabilities are provided with accommodations such as extended time, modified seating arrangements, and appropriate assistive devices, this practice represents:

Ans
- ✘ 1. Social isolation
- ✘ 2. Structural discrimination
- ✘ 3. Attitudinal exclusion
- ✔ 4. Pedagogical inclusion

Question ID : **4410091550608**
Option 1 ID : **4410096124885**
Option 2 ID : **4410096124886**
Option 3 ID : **4410096124884**
Option 4 ID : **4410096124883**

Q.17 Which approach best supports conceptual understanding of numbers among elementary students?

Ans
- ✔ 1. Using manipulatives and real-life examples in lessons
- ✘ 2. Focusing exclusively on rote memorization of tables
- ✘ 3. Relying entirely on textbook definitions without practice
- ✘ 4. Assigning only theoretical worksheets for homework

Question ID : **4410091641196**
Option 1 ID : **4410096481937**
Option 2 ID : **4410096481938**
Option 3 ID : **4410096481940**
Option 4 ID : **4410096481939**

QuickSarkari.com | WhatsApp Channel | Telegram: t.me/quick_sarkari

Q.18 **Which of the following best demonstrates a school's commitment to working towards gender equality?**

Ans
✗ 1. Celebrating only International Women's Day
✓ 2. Organizing workshops on gender stereotypes
✗ 3. Forming single-gender sports teams for competitions
✗ 4. Encouraging only girls to participate in science clubs

Question ID : **4410091622902**
Option 1 ID : **4410096410383**
Option 2 ID : **4410096410381**
Option 3 ID : **4410096410380**
Option 4 ID : **4410096410382**

Q.19 **A school wishes to address the issue of gender bias in classroom interactions. Which approach is most effective for promoting inclusive education according to current theories on diversity and gender?**

Ans
✗ 1. Increasing the number of female teachers in the school
✓ 2. Training teachers to recognise and challenge implicit bias
✗ 3. Modifying curriculum content alone without altering classroom practices
✗ 4. Separating students by gender to minimize bias

Question ID : **4410091618286**
Option 1 ID : **4410096392011**
Option 2 ID : **4410096392012**
Option 3 ID : **4410096392014**
Option 4 ID : **4410096392013**

Q.20 **In evaluating classroom practices, which approach best addresses inequality and diversity?**

Ans
✗ 1. Highlighting only top achievers
✗ 2. Grouping by language ability
✓ 3. Encouraging all student voices
✗ 4. Limiting culture to textbooks

Question ID : **4410091640516**
Option 1 ID : **4410096479259**
Option 2 ID : **4410096479260**
Option 3 ID : **4410096479261**
Option 4 ID : **4410096479262**

"

QuickSarkari.com | WhatsApp Channel | Telegram: t.me/quick_sarkari

Quick Sarkari

Thank you for studying with QuickSarkari!

Get the latest Sarkari Naukri notifications, admit cards, results, answer keys and free previous-year papers first - follow us on WhatsApp and Telegram.

Visit www.quicksarkari.com

Join our WhatsApp Channel

https://whatsapp.com/channel/0029VaxxbrREquiPoXTWM229

Join our Telegram Channel

https://t.me/quick_sarkari

Share this PDF with your friends preparing for DSSSB exams.