Quick Sarkari

DSSSB PREVIOUS YEAR PAPER WITH ANSWER KEY

DSSSB Assistant Teacher (Primary) – PRT

10 April 2026 · Shift 2

डीएसएसएसबी सहायक अध्यापक (प्राथमिक) – PRT – 10 अप्रैल 2026, शिफ्ट 2 का प्रश्न पत्र, उत्तर कुंजी सहित

200	120 min	1 / −0.25	EN + HI
Questions / प्रश्न	Duration / समय	Marks per Q / अंक	Language / भाषा

Sections: General Intelligence and Reasoning Ability, General Awareness, Arithmetical and Numerical Ability, English Language and Comprehension, Hindi Language and Comprehension, Assistant Teacher (Primary) – PRT

INSIDE THIS PDF / इस PDF में

Question Paper in English + Hindi with Answer Key (correct option marked in green) + answer table — Page 2–51
प्रश्न पत्र अंग्रेज़ी + हिंदी में, उत्तर कुंजी सहित (सही विकल्प हरे रंग में) + उत्तर तालिका

Official DSSSB Response Sheet with Answer Key (correct option ticked in green) — Page 52–121
आधिकारिक DSSSB रिस्पॉन्स शीट, उत्तर कुंजी सहित (सही विकल्प हरे टिक से)

HOW TO USE THIS PAPER / इस पेपर का उपयोग कैसे करें

1. Attempt the paper first as a timed online mock test (link below).
   पहले नीचे दिए लिंक से इसे टाइमर के साथ ऑनलाइन मॉक टेस्ट के रूप में हल करें।
2. Check your score, section-wise analysis and solutions online.
   ऑनलाइन अपना स्कोर, खंड-वार विश्लेषण और हल देखें।
3. Use this PDF for revision. Correct answers are shown in green.
   दोहराने के लिए इस PDF का उपयोग करें। सही उत्तर हरे रंग में दिए गए हैं।

Attempt this paper as a FREE online mock test

इस पेपर को फ्री ऑनलाइन मॉक टेस्ट के रूप में हल करें – टाइमर, स्कोर और हल के साथ

https://quicksarkari.com/dsssb-assistant-teacher-primary-10-april-2026-shift-2-mock-test/

All DSSSB Assistant Teacher (Primary) – PRT papers and mock tests: **quicksarkari.com/dsssb-mock-test/#assistant-teacher-primary**

Join WhatsApp Channel | Join Telegram Channel

DSSSB Assistant Teacher (Primary) – PRT – Question Paper (English + Hindi)

DSSSB सहायक अध्यापक (प्राथमिक) – PRT – प्रश्न पत्र (अंग्रेज़ी + हिंदी)

Exam held on 10 April 2026, Shift 2 · 200 questions · correct answers marked ✔ in green
परीक्षा तिथि 10 अप्रैल 2026, शिफ्ट 2 · 200 प्रश्न · सही उत्तर हरे रंग में ✔ से चिह्नित

> The official paper for this shift was in Hindi. The English version of each question is a translation prepared by QuickSarkari; the language-section questions are shown as asked.
> इस शिफ्ट का आधिकारिक प्रश्न पत्र हिंदी में था। प्रत्येक प्रश्न का अंग्रेज़ी संस्करण QuickSarkari द्वारा तैयार किया गया अनुवाद है; भाषा खंड के प्रश्न मूल रूप में दिए गए हैं।

General Intelligence and Reasoning Ability

Q.1 Two sets of numbers are given below. In each set of numbers, certain mathematical operation(s) on the first number result(s) in the second number. Similarly, certain mathematical operation(s) on the second number result(s) in the third number, and so on.
Which of the given options follows the same set of operations as in the given sets?
(NOTE: Operations should be performed on the whole numbers, without breaking down the numbers into their constituent digits.
For example, 13 – Operations on 13 such as adding/subtracting/multiplying etc. to 13 can be performed. Breaking down 13 into 1 and 3 and then performing mathematical operations on 1 and 3 is not allowed.)
38 - 266 - 532 - 544 13 - 91 - 182 - 194

नीचे संख्याओं के दो समुच्चय दिए गए हैं। संख्याओं के प्रत्येक समुच्चय में, पहली संख्या पर निश्चित गणितीय संक्रियाएं करके दूसरी संख्या प्राप्त की गई है। इसी प्रकार, दूसरी संख्या पर निश्चित गणितीय संक्रियाएं करके तीसरी संख्या प्राप्त की गई है, और इसी प्रकार आगे की भी संक्रियाएं प्राप्त की गई है।
दिए गए विकल्पों में से कौन-सा विकल्प, उन्हीं संक्रियाओं का अनुसरण करता है, जो दिए गए समुच्चयों में अनुसरण की गई है?
(नोट: संख्याओं को उनके घटक अंकों में तोड़े बिना, पूर्ण संख्याओं पर संक्रियाएं की जानी चाहिए।
उदाहरण के लिए 13 लीजिए, 13 पर संक्रियाएं, जैसे कि 13 में जोड़ना/घटाना/गुणा करना आदि, की जा सकती है। 13 को 1 और 3 में तोड़ना तथा फिर 1 और 3 पर गणितीय संक्रियाएं करने की अनुमति नहीं है।)
38 - 266 - 532 - 544 13 - 91 - 182 - 194

(1) 25 - 155 - 465 - 478
(2) 22 - 154 - 770 - 782
(3) 12 - 96 - 288 - 300
(4) 15 - 105 - 210 - 222 ✔

Q.2 In a certain code language, 'FLAT' is coded as '4625' and 'CALF' is coded as '2674'. What is the code for 'C' in the given code language?

एक निश्चित कूट भाषा में, 'FLAT' को '4625' के रूप में कूटबद्ध किया जाता है और 'CALF' को '2674' के रूप में कूटबद्ध किया जाता है। दी गई कूट भाषा में 'C' के लिए कूट क्या है?

(1) 7 ✔
(2) 4
(3) 2
(4) 6

Q.3 If 2 is added to each odd digit and 1 is subtracted from each even digit in the number 2561473, how many digits will appear more than once in the new number thus formed?

यदि संख्या 2561473 के प्रत्येक विषम अंक में 2 जोड़ा जाता है तथा प्रत्येक सम अंक में से 1 घटाया जाता है, तो इस प्रकार बनी नई संख्या में कितने अंक एक से अधिक बार आएंगे?

(1) Two / दो ✔

(2) One / एक

(3) None / एक भी नहीं

(4) Three / तीन

Q.4 In a row of 26 students facing north, Manish is 15th from the left end. If Divya is 6th to the right of Manish, what is Divya's position from the right end of the row?

उत्तर की ओर अभिमुख 26 विद्यार्थियों की एक पंक्ति में, मनीष बाएं छोर से 15वें स्थान पर है। यदि दिव्या, मनीष के दाएं छठे स्थान पर है, तो पंक्ति के दाएं छोर से दिव्या का स्थान कौन-सा है?

(1) Third / तीसरा

(2) Seventh / सातवां

(3) Sixth / छठा ✔

(4) Fourth / चौथा

Q.5 HH 12 is related to FE -4 in a certain way. In the same way, EI 13 is related to CF -3. Following the same logic, MP 20 is related to which of the following?

एक निश्चित तरीके से HH 12 का संबंध FE -4 से है। इसी प्रकार, EI 13 का संबंध CF -3 से है। समान तर्क का अनुसरण करते हुए, MP 20 का संबंध निम्नलिखित में से किससे है?

(1) KM 4 ✔

(2) LM 4

(3) LL 6

(4) KL 6

QuickSarkari.com | WhatsApp Channel | Telegram: t.me/quick_sarkari

Q.6 If a water source is placed along M-N as shown below, which of the following options will be the water image of the given figure?

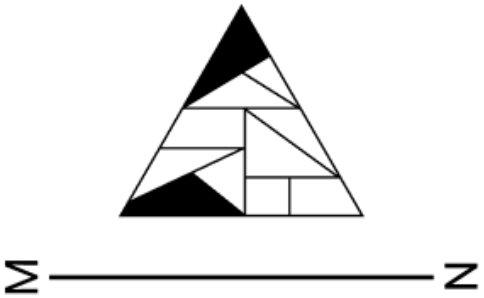

यदि जल स्रोत को निम्नानुसार M-N के अनुदिश रखा जाए, तो निम्न में से कौन-सा विकल्प दी गई आकृति का जल प्रतिबिंब होगा?

(1) 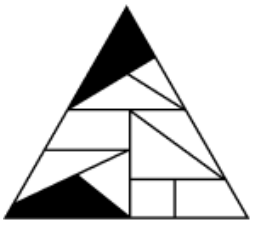

(2) 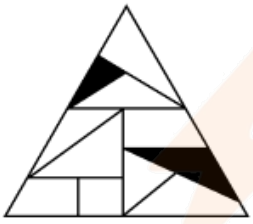

(3)  ✔

(4) 

Q.7 Which of the following will replace ? in the given series based on the English alphabetical order?
NIOD VQWL DYET LGMB ?

अंग्रेजी वर्णमाला क्रम के आधार पर दी गई श्रृंखला में ? के स्थान पर क्या आना चाहिए?
NIOD VQWL DYET LGMB ?

(1) THGV
(2) **TOUJ** ✔
(3) TOIL
(4) TUHG

QuickSarkari.com | WhatsApp Channel | Telegram: t.me/quick_sarkari

Q.8 Refer to the following series and answer the question given below. Counting is to be done from left to right only. (All numbers are single-digit numbers only).
(Left) 6 9 5 4 2 1 4 5 8 4 6 7 3 6 8 5 2 9 1 2 1 7 4 4 5 5 8 4 4 2 (Right)
How many prime digits are there, each of which is immediately preceded by an even digit and immediately followed by an even digit?
निम्नलिखित श्रृंखला का संदर्भ लें और नीचे दिए गए प्रश्न का उत्तर दें। गिनती केवल बाएँ से दाएँ कीजानी है। (सभी संख्याएँ केवल एकल-अंकीय संख्याएँ हैं)।
(बाएँ) 6 9 5 4 2 1 4 5 8 4 6 7 3 6 8 5 2 9 1 2 1 7 4 4 5 5 8 4 4 2 (दाएँ)
ऐसे कितने अभाज्य अंक हैं जिनमें से प्रत्येक के ठीक पहले एक सम अंक है और ठीक बाद एक समअंक है?

(1) Three / तीन
(2) One / एक
(3) Two / दो ✔
(4) More than three / तीन से अधिक

Q.9 Three of the following four letter-clusters are alike in a certain way based on the English alphabetical order and thus form a group. Which letter-cluster does NOT belong to that group?
(Note: The odd letter-cluster is not based on the number of consonants/vowels or their position in the letter-cluster.)
अंग्रेज़ी वर्णमाला क्रम पर आधारित, निम्नलिखित चार अक्षर-समूहों में से तीन एक निश्चित तरीके से समान हैं और इस प्रकार वे एक ग्रुप बनाते हैं। कौन-सा अक्षर-समूह उस ग्रुप से संबंधित नहीं है?
(नोट: असंगत अक्षर-समूह, व्यंजनों/स्वरों की संख्या या उनकी स्थिति पर आधारित नहीं है।)

(1) XVS ✔
(2) ZWU
(3) FCA
(4) PMK

Q.10 Refer to the following letter series and answer the question. Counting is to be done from left to right only.
(Left) P V V M H V X E L E E F T S I O X I G (Right)
How many vowels are there, each of which is immediately preceded by a consonant and also immediately followed by a vowel?
निम्नलिखित अक्षर श्रृंखला का संदर्भ लें और प्रश्न का उत्तर दें। गिनती केवल बाएँ से दाएँ की जानी है। (बाएँ) P V V M H V X E L E E F T S I O X I G (दाएँ)
ऐसे कितने स्वर हैं जिनमें से प्रत्येक के ठीक पहले एक व्यंजन है और ठीक बाद में एक स्वर भी है?

(1) 4
(2) 2 ✔
(3) 1
(4) 3

Q.11 This question is based on the five three-digit numbers given below.
(Left) 589 524 539 617 676 (Right)
(Example- 697 – First digit = 6, second digit = 9 and third digit = 7)
NOTE - All operations are to be done from left to right.
What will be the result when the third digit of the largest number is added to the second digit of the smallest number?

यह प्रश्न नीचे दी गई तीन अंकों वाली पांच संख्याओं पर आधारित है।
(बाएँ) 589 524 539 617 676 (दाएँ)
(उदाहरण- 697 – पहला अंक = 6, दूसरा अंक = 9 और तीसरा अंक = 7)
नोट - सभी संक्रियाएँ बाएँ से दाएँ की जानी हैं।
सबसे बड़ी संख्या के तीसरे अंक को सबसे छोटी संख्या के दूसरे अंक में जोड़ने पर परिणाम कितना प्राप्त होगा?

(1) 6
(2) **8** ✔
(3) 5
(4) 7

Q.12 If '+' and '-' are interchanged and 'x' and '÷' are interchanged, what will come in place of '?' in the following equation?
18 x 2 + 7 - 3 ÷ 1 = ?

यदि '+' और '-' को परस्पर बदल दिया जाए तथा 'x' और '÷' को परस्पर बदल दिया जाए, तो निम्नलिखित समीकरण में '?' के स्थान पर क्या आएगा?
18 x 2 + 7 - 3 ÷ 1 = ?

(1) 3
(2) **5** ✔
(3) 12
(4) 8

QuickSarkari.com | WhatsApp Channel | Telegram: t.me/quick_sarkari

Q.13 If a water source is placed along X-Y as shown in the given figure, which of the given options will be the water image of the following figure?

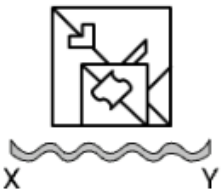

यदि एक जल स्रोत को X-Y के अनुदिश रखा जाता है, जैसा कि दिए गए चित्र में दिखाया गया है, तो दिए गए विकल्पों में से कौन-सा निम्न चित्र का जल प्रतिबिंब होगा?

(1) 

(2) 

(3) 

(4)  ✔

Q.14 Seven people, E, F, G, H, K, L and N, are sitting in a row, facing north. Only two people sit between K and E. Only G sits to the right of H. Only one person sits between E and H. N sits at some place to the right of L but at some place to the left of F. How many people sit between F and L?

सात व्यक्ति, E, F, G, H, K, L और N, उत्तर की ओर अभिमुख होकर एक पंक्ति में बैठे हैं। K और E के बीच केवल दो व्यक्ति बैठे हैं। H के दाईं ओर केवल G बैठा है। E और H के बीच केवल एक व्यक्ति बैठा है। N, L के दाईं ओर किसी एक स्थान पर लेकिन F के बाईं ओर किसी एक स्थान पर बैठा है। F और L के बीच कितने व्यक्ति बैठे हैं?

(1) Two / दो ✔

(2) Three / तीन

(3) One / एक

(4) Four / चार

Q.15 In a row of people sitting facing north, Tanya is 14th from the left end.
Rahul is 29th from the left end. Rahul sits exactly in the middle of Tanya and Aditya. If Aditya is 5th from the right end of the row, how many people are there in the row in total?

उत्तर की ओर अभिमुख होकर बैठे व्यक्तियों की एक पंक्ति में, तान्या बाएं छोर से 14वें स्थान पर है।
राहुल बाएं छोर से 29वें स्थान पर है। तान्या और आदित्य के ठीक बीच में राहुल बैठा है। यदि आदित्य पंक्ति के दाएं छोर से 5वें स्थान पर है, तो पंक्ति में कुल कितने व्यक्ति हैं?

(1) 47

(2) 48 ✔

(3) 46

(4) 49

QuickSarkari.com | WhatsApp Channel | Telegram: t.me/quick_sarkari

Q.16 What will come in place of '?' in the given series?
5 11 23 47 95 ?
दी गई श्रृंखला में '?' के स्थान पर क्या आएगा?
5 11 23 47 95 ?

(1) 204
(2) 191 ✔
(3) 200
(4) 195

Q.17 Each of E, F, G, I, W, X and Y has an exam on a different day of the same week, starting from Monday and ending on Sunday. Only three people have their exam between I and F. Only three people have their exam between W and X. E has the exam on some day before F and on some day after Y. Only G has the exam before X. How many people have their exam after I?
E, F, G, I, W, X और Y में से प्रत्येक की परीक्षा सोमवार से शुरू होकर रविवार को समाप्त होने वाले एक ही सप्ताह के अलग-अलग दिन है। I और F के बीच केवल तीन लोगों की परीक्षा होती है। W और X के बीच केवल तीन लोगों की परीक्षा होती है। E की परीक्षा F से पहले किसी दिन और Y के बादकिसी दिन होती है। केवल G की परीक्षा X से पहले होती है। I के बाद कितने लोगों की परीक्षा होती है?

(1) Two / दो
(2) Four / चार ✔
(3) Three / तीन
(4) One / एक

Q.18 Three of the following four letter-clusters are alike in a certain way based on the English alphabetical order and thus form a group. Which letter-cluster does NOT belong to that group?
(Note: The odd letter-cluster is not based on the number of consonants/vowels or their position in the letter-cluster.)
अंग्रेजी वर्णमाला क्रम पर आधारित, निम्नलिखित चार अक्षर-समूहों में से तीन एक निश्चित तरीके से एकसमान हैं और इस प्रकार एक ग्रुप बनाते हैं। कौन-सा अक्षर-समूह उस ग्रुप से संबंधित नहीं है?
(नोट: असंगत अक्षर-समूह, व्यंजनों/स्वरों की संख्या या उनकी स्थिति पर आधारित नहीं है।)

(1) KOQ
(2) PUV ✔
(3) WAC
(4) GKM

Q.19 F is the father of I. I is the brother of G. W is the father of Z. Z is the son of G. How is W related to F?
F, I का पिता है। I, G का भाई है। W, Z का पिता है। Z, G का पुत्र है। W का F से क्या संबंध है?

(1) Daughter's husband / पुत्री का पति ✔
(2) Husband / पति
(3) Daughter's son / पुत्री का पुत्र
(4) Father / पिता

Q.20 In the word ABATAGES, each vowel is replaced by the letter immediately preceding it in the English alphabetical order and each consonant is replaced by the letter immediately following it in the English alphabetical order. Which of the following letters will appear more than twice in the new group of letters thus formed?

ABATAGES शब्द में प्रत्येक स्वर को अंग्रेजी वर्णमाला क्रम में उसके ठीक पहले आने वाले अक्षर सेबदल जाता है और प्रत्येक व्यंजन को अंग्रेजी वर्णमाला क्रम में उसके ठीक बाद आने वाले अक्षर सेबदल दिया जाता है। निम्नलिखित में से कौन-सा अक्षर, इस प्रकार बने अक्षरों के नए समूह में दो बारसे अधिक दिखाई देगा?

(1) Z ✔
(2) U
(3) C
(4) H

General Awareness

Q.21 With which of the following countries did Russia sign a military alliance in 2024?

रूस ने 2024 में निम्नलिखित में से किस देश के साथ सैन्य गठबंधन पर हस्ताक्षर किए?

(1) Iran / ईरान
(2) Belarus / बेलारूस
(3) China / चीन
(4) North Korea / उत्तर कोरिया ✔

Q.22 Unlike sound waves, electromagnetic waves can travel through _____.

ध्वनि तरंगों के विपरीत, विद्युत् चुंबकीय तरंगें _____ के माध्यम से यात्रा कर सकती हैं।

(1) water only / केवल जल
(2) air only / केवल वायु
(3) solids only / केवल ठोस
(4) vacuum / निर्वात ✔

Q.23 In which year did Qutbuddin Aibak become the ruler of Muhammad Ghori's Indian territories?

कुतुबुद्दीन ऐबक किस वर्ष मुहम्मद गोरी के भारतीय क्षेत्र का शासक बना था?

(1) 1192 CE / 1192 ईस्वी
(2) 1210 CE / 1210 ईस्वी
(3) 1206 CE / 1206 ईस्वी ✔
(4) 1221 CE / 1221 ईस्वी

Q.24 According to the Periodic Labour Force Survey (PLFS), the unemployment rate (UR) for persons aged 15 years and above in India declined from 6% in 2017-18 to how much in 2023-24?

आवधिक श्रम बल सर्वेक्षण (PLFS) के अनुसार, भारत में 15 वर्ष और उससे अधिक आयु के व्यक्तियों के लिए बेरोजगारी दर (UR) 2017-18 में 6% से घटकर 2023-24 में कितनी हो गई।

(1) 4.2%
(2) 2.2%
(3) 5.2%
(4) 3.2% ✔

Q.25 Among the religious groups listed in the 2011 Census, which religious group had the lowest share in the population?

2011 की जनगणना में सूचीबद्ध धार्मिक समूहों में से किस धार्मिक समूह की जनसंख्या में हिस्सेदारीसबसे कम थी?

(1) Hindu / हिंदू

(2) Jain / जैन ✔

(3) Sikh / सिख

(4) Buddhist / बौद्ध

Q.26 Which Article among the Fundamental Rights of the Indian Constitution deals with the prohibition of employment of children in factories and states that 'No child below the age of fourteen years shall be employed to work in any factory or mine or engaged in any other hazardous employment'?

भारतीय संविधान के मौलिक अधिकारों में शामिल कौन-सा अनुच्छेद कारखानों में बच्चों के रोजगार पर प्रतिबंध से संबंधित है और कहता है कि 'चौदह वर्ष से कम आयु के किसी भी बच्चे को किसी कारखाने या खदान में काम करने के लिए नियोजित नहीं किया जाएगा या किसी अन्य खतरनाक रोजगार में नहीं लगाया जाएगा'?

(1) Article 19 / अनुच्छेद 19

(2) Article 24 / अनुच्छेद 24 ✔

(3) Article 31 / अनुच्छेद 31

(4) Article 14 / अनुच्छेद 14

Q.27 Structural unemployment is mainly caused by _____.

संरचनात्मक बेरोजगारी मुख्य रूप से _____ के कारण होती है।

(1) Cyclical demand fall / चक्रीय मांग में गिरावट (Cyclical demand fall)

(2) Seasonal variation / ऋतुनिष्ठ विचरण (Seasonal variation)

(3) Skill mismatch / कौशल बेमेल (Skill mismatch) ✔

(4) Voluntary quitting / स्वैच्छिकतः नौकरी छोड़ने (Voluntary quitting)

Q.28 Which of the following sitar maestros is famous for his contribution to classical music in India?

निम्नलिखित में से कौन-सा सितार उस्ताद, भारत में शास्त्रीय संगीत में अपने योगदान के लिए प्रसिद्ध है?

(1) Pandit Bhimsen Joshi / पंडित भीमसेन जोशी

(2) Zakir Hussain / ज़ाकिर हुसैन

(3) Ravi Shankar / रविशंकर ✔

(4) R. D. Burman / आर. डी. बर्मन

Q.29 Which of the following is an incomplete protein (a source of protein in which all the essential amino acids are not present in sufficient quantity)?

निम्नलिखित में से कौन-सा अपूर्ण प्रोटीन (प्रोटीन का एक ऐसा स्रोत जिसमें सभी अनिवार्य ऐमीनो अम्ल पर्याप्त मात्रा में मौजूद नहीं होते हैं) है?

(1) Pulses / दाल ✔

(2) Milk / दूध

(3) Egg / अंडा

(4) Fish / मछली

Q.30 Who was the historian who described the abilities of Raziya as the ruler of Delhi in 1236?

1236 में, दिल्ली के शासक के रूप में रजिया की क्षमताओं का वर्णन करने वाला इतिहासकार कौनथा?

(1) Ibn Battuta / इब्न बतूता

(2) Amir Khusrau / अमीर ख़ुसरो

(3) **Minhaj-i-Siraj / मिन्हाज-ए सिराज ✓**

(4) Firishta / फ़रिश्ता

Q.31 The Governor of which of the following states has been entrusted with special responsibility for maintaining law and order in the state under Article 371 A of the Indian Constitution?

निम्नलिखित में से किस राज्य के राज्यपाल को भारतीय संविधान के अनुच्छेद 371 A के अंतर्गत राज्य में कानून और व्यवस्था बनाए रखने की विशेष जिम्मेदारी सौंपी गई है?

(1) Mizoram / मिजोरम

(2) Assam / असम

(3) **Nagaland / नागालैंड ✓**

(4) Manipur / मणिपुर

Q.32 Teak is the most dominant species of which type of forest in India?

सागौन, भारत में किस प्रकार के वन की सबसे प्रमुख प्रजाति है?

(1) **Tropical deciduous forests / उष्णकटिबंधीय पर्णपाती वन ✓**

(2) Tropical evergreen forests / उष्णकटिबंधीय सदाबहार वन

(3) Thorn forests and scrubs / कंटक वन और झाड़ियां

(4) Montane forests / पर्वतीय वन

Q.33 In 2025, which Indian Special Forces unit represented India in the 12th edition of Exercise KHANJAR held in Kyrgyzstan?

2025 में, किर्गिस्तान में आयोजित अभ्यास खंजर (KHANJAR) के 12वें संस्करण में भारत का प्रतिनिधित्व किस भारतीय विशेष बल इकाई ने किया था?

(1) Sikh Light Infantry Regiment (Special Forces) / सिख लाइट इन्फैंट्री रेजिमेंट (विशेष बल)

(2) **Parachute Regiment (Special Forces) / पैराशूट रेजिमेंट (विशेष बल) ✓**

(3) Jat Infantry Regiment (Special Forces) / जाट इन्फैंट्री रेजिमेंट (विशेष बल)

(4) Garhwal Rifles Regiment (Special Forces) / गढ़वाल राइफल्स रेजिमेंट (विशेष बल)

Q.34 During 1820-21, the people of the Ho community who revolted against British and zamindari oppression were mainly located in which of the following regions?

1820-21 के दौरान, ब्रिटिश और जमींदार उत्पीड़न के खिलाफ विद्रोह करने वाले हो समुदाय (Ho community) के लोग निम्नलिखित में से मुख्य रूप से किस क्षेत्र में स्थित थे?

(1) Godda / गोड्डा (Godda)

(2) Gumla / गुमला (Gumla)

(3) Saraikela / सरायकेला (Saraikela)

(4) **Singhbhum / सिंहभूम (Singhbhum) ✓**

Q.35 In April 2025, French luxury brand 'Chanel' named which Bollywood actress as its first brand ambassador from India?

अप्रैल 2025 में, फ्रांसीसी लग्जरी ब्रांड 'चैनल (Chanel)' ने किस बॉलीवुड अभिनेत्री को भारत से अपना पहला ब्रांड एंबेसडर नामित किया?

(1) Shraddha Kapoor / श्रद्धा कपूर

(2) Disha Patani / दिशा पाटनी

(3) **Ananya Panday / अनन्या पांडे ✔**

(4) Alia Bhatt / आलिया भट्ट

Q.36 What is stated about the Directive Principles of State Policy in the Indian Constitution?

भारतीय संविधान में राज्य के नीति निर्देशक सिद्धांतों के बारे में क्या वर्णित है?

(1) They override rights during the period of a national emergency. / ये राष्ट्रीय आपातकाल की अवधि के दौरान अधिकारों को अधिभावी कर देते हैं।

(2) **They are not enforceable, but guide the governance of the state. / ये प्रवर्तनीय नहीं होते हैं, लेकिन राज्य-शासन का मार्गदर्शन करते हैं। ✔**

(3) They are legally binding and enforceable by the courts. / ये कानूनी रूप से बाध्यकारी होते हैं और न्यायालयों द्वारा प्रवर्तनीय होते हैं।

(4) They are optional and can be ignored by the government. / ये वैकल्पिक होते हैं और सरकार द्वारा उनकी उपेक्षा की जा सकती है।

Q.37 Which of the following types of soil is widely spread in the northern Indian plains and river valleys?

निम्नलिखित में से किस प्रकार की मृदा उत्तरी भारतीय मैदानों और नदी घाटियों में व्यापक रूप से विस्तृत है?

(1) Laterite soil / लैटेराइट मृदा

(2) **Alluvial soil / जलोढ़ मृदा ✔**

(3) Black soil / काली मृदा

(4) Arid soil / शुष्क मृदा

Q.38 What was the impact of the ongoing India-Pakistan conflict on the Indian Premier League (IPL) 2025?

भारत-पाकिस्तान के बीच चल रहे संघर्ष का इंडियन प्रीमियर लीग (IPL) 2025 पर क्या प्रभाव पड़ा?

(1) The IPL 2025 season continued without any interruption. / IPL 2025 सीजन बिना किसी रुकावट के जारी रहा।

(2) The IPL 2025 season was shifted to the United Arab Emirates. / IPL 2025 सीजन संयुक्त अरब अमीरात में स्थानांतरित कर दिया गया।

(3) The IPL 2025 season was cancelled completely. / IPL 2025 सीजन पूरी तरह से रद्द कर दिया गया।

(4) **The IPL 2025 season was suspended for one week. / IPL 2025 सीजन एक सप्ताह के लिए स्थगित कर दिया गया। ✔**

Q.39 Who became the new chief of Hezbollah after the death of Hassan Nasrallah?

हसन नसरल्लाह की मृत्यु के बाद हिज़्बुल्लाह का नया प्रमुख कौन बना?

(1) Zeinab Soleimani / ज़ैनब सोलेमानी (Zeinab Soleimani)

(2) **Naim Qassem / नईम कासिम (Naim Qassem) ✔**

(3) Hashem Saifeddine / हाशेम सफीद्दीन (Hashem Saifeddine)

(4) Raeda Faqih / रायदा फ़कीह (Raeda Faqih)

Q.40 Where was the capital of Alauddin Khilji built?

अलाउद्दीन खिलजी की राजधानी कहाँ बनाई गई थी?

(1) Jahanpanah / जहाँपनाह

(2) Siri / सिरी ✔

(3) Tughlaqabad / तुगलकाबाद

(4) Firozabad / फिरोजाबाद

Arithmetical and Numerical Ability

Q.41 A trader sells a bag for ₹1,260, on which he incurs a loss of 10%. Find the cost price of the bag.

एक व्यापारी एक थैला ₹1,260 में बेचता है जिस पर उसे 10% की हानि होती है। थैले का क्रय मूल्य ज्ञात कीजिए।

(1) ₹1,300

(2) ₹1,450

(3) ₹1,400 ✔

(4) ₹1,350

Q.42 By how much is 30% of 80 more than 25% of 30?

80 का 30%, 30 के 25% से कितना अधिक है?

(1) 13.5

(2) 11.5

(3) 16.5 ✔

(4) 18.5

Q.43 The average of 7 numbers was calculated as 25. Later it was found that two numbers, 29 and 12, were mistakenly written as 10 and 10. Find the correct average.

7 संख्याओं का औसत 25 निकाला गया। बाद में पाया गया कि दो संख्याएँ 29 और 12 गलती से 10 और 10 के रूप में लिख दी गई थीं। सही औसत ज्ञात कीजिए।

(1) 28 ✔

(2) 27

(3) 25

(4) 29

Q.44 If 9.9 : x :: x : 27.5, and x > 0, then find the value of x.

यदि 9.9 : x :: x : 27.5, और x > 0 है, तो x का मान ज्ञात कीजिए।

(1) 13

(2) 19.7

(3) 12.9

(4) 16.5 ✔

Q.45 A completes a work in 17 days and B completes the same work in 23 days. If both of them work together on the same work for 5 days, how much work will be left?

A किसी कार्य को 17 दिनों में और B उसी कार्य को 23 दिनों में पूरा करता है। यदि वे दोनों 5 दिनों तक उसी कार्य को एक साथ करते हैं तो कितना कार्य शेष रह जाएगा?

(1) 189/391

(2) 191/391 ✔

(3) 188/391

(4) 194/391

Q.46 Ketan has two grandsons, Mahesh and David. Mahesh, aged 13 years, gets some amount from Ketan's property, and David, aged 14 years, gets the remaining amount. But Mahesh and David will get this amount only when they turn 25 years old. Till then, the amount will be kept in a bank, on which interest will be earned at the rate of 5% per annum (compounded annually). When both turn 25 years old, they will get equal amounts. If the total amount Ketan had was ₹24,600, how much amount (in ₹) did Ketan initially give to David?

केतन के दो पौत्र, महेश और डेविड हैं। 13 वर्षीय महेश को केतन की संपत्ति से कुछ धनराशि मिलती है, और 14 वर्षीय डेविड को शेष धनराशि मिलती है। लेकिन महेश और डेविड को यह धनराशि तभी मिलेगी जब वे 25 वर्ष के हो जाएंगे। तब तक, धनराशि किसी बैंक में रखी जाएगी जिस पर 5% वार्षिक दर से ब्याज (वार्षिक रूप से संयोजित) अर्जित होगा। जब दोनों 25 वर्ष के हो जाएंगे, तो उन्हें समान धनराशि मिलेगी। यदि केतन के पास कुल धनराशि ₹24,600 थी, तो केतन ने शुरुआत में डेविड को कितनी धनराशि (₹ में) दी थी?

(1) 12,950

(2) 12,600 ✔

(3) 12,000

(4) 11,750

Q.47 (2/7) × (21/10) + (9/5 − 6)
Find the value of the above.

(2/7) × (21/10) + (9/5 − 6)
का मान ज्ञात कीजिए।

(1) −11/2

(2) −18/5 ✔

(3) −17/8

(4) −8/15

Q.48 During a sale, 60% of the articles are sold at a profit of 47%. Of the remaining articles, 40% are sold at a profit of 44%, and thereafter the remaining articles are sold at a loss of 11%. If the cost price of all the articles is the same, and the overall profit is x%, what will be the value of x?

एक सेल के दौरान, 60% वस्तुओं को 47% लाभ पर बेचा जाता है। शेष वस्तुओं में से 40% वस्तुओं को 44% लाभ पर बेचा जाता है, और उसके बाद शेष वस्तुओं को 11% हानि पर बेचा जाता है। यदिसभी वस्तुओं का क्रय मूल्य समान है, और समग्र लाभ x% है, तो x का मान कितना होगा?

(1) 33.4

(2) 30.5

(3) 31.5

(4) 32.6 ✔

Q.49 What is the diameter of the largest circle lying on the surface of a sphere of surface area 2,98,144 cm^2? (Use π = 22/7)

2,98,144 cm^2 पृष्ठीय क्षेत्रफल वाले एक गोले की सतह पर स्थित सबसे बड़े वृत्त का व्यास क्या है?
(π = 22/7 का उपयोग कीजिए)

(1) 237 cm
(2) 716 cm
(3) 154 cm
(4) 308 cm ✔

Q.50 If the volume of a cube is 19683 m^3, find the total surface area of the cube (in m^2).

यदि घन का आयतन 19683 m^3 है, तो घन का संपूर्ण पृष्ठीय क्षेत्रफल (m^2) में ज्ञात कीजिए।

(1) 4421
(2) 4392
(3) 4341
(4) 4374 ✔

Q.51 Study the graph and answer the following question. Information about the different fruits bought by three persons A, B and C is given in the graph.

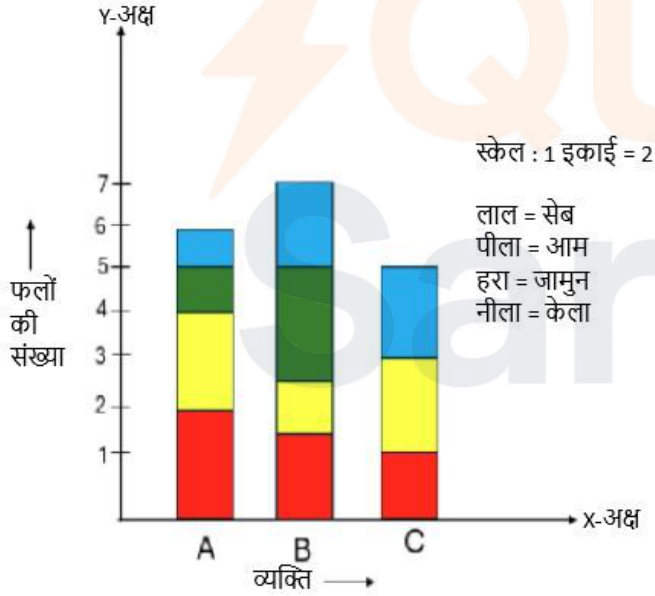

What is the total number of fruits bought by A, B and C together?

ग्राफ का अध्ययन करें और निम्नलिखित प्रश्न का उत्तर दें। तीन व्यक्तियों A, B और C द्वारा खरीदे गए विभिन्न फलों के बारे में जानकारी ग्राफ में दी गई है।

A, B और C द्वारा एक साथ ख़रीदे गए फलों की कुल संख्या कितनी है?

(1) 30
(2) 18
(3) 36 ✔
(4) 24

Q.52 A shopkeeper marks the price of an article at ₹5,000. He gives a trade discount of 20% to the retailer. The retailer gets another scheme discount: "Buy goods worth ₹4,000 and get an additional discount of ₹200". How much amount will the retailer finally have to pay?

एक दुकानदार किसी वस्तु का मूल्य ₹5,000 अंकित करता है। वह खुदरा विक्रेता को 20% की व्यापार छूट देता है। खुदरा विक्रेता को एक और स्कीम छूट मिलती है: "₹4,000 का सामान खरीदऔर ₹200 की अतिरिक्त छूट पाएँ"। खुदरा विक्रेता को अंत में कितनी धनराशि का भुगतान करनाहोगा?

(1) ₹4,200
(2) **₹3,800** ✔
(3) ₹4,000
(4) ₹3,600

Q.53 If a boy runs at a speed of 8 km/hr, how many seconds will he take to complete one full round of a square field of side 20 metres?

यदि कोई लड़का 8 km/hr की चाल से दौड़ता है, तो उसे 20 मीटर भुजा वाले वर्गाकार मैदान का एक पूरा चक्कर लगाने में कितने सेकंड का समय लगेगा?

(1) 16
(2) **36** ✔
(3) 46
(4) 26

Q.54 P started a software business by investing ₹21000. After nine months, R joined him in the business with a capital of ₹72000. After 3 years, they earned a profit of ₹50000. What was P's share in the profit (in ₹, rounded off to the nearest integer)?

P ने ₹21000 का निवेश करके एक सॉफ्टवेयर व्यवसाय शुरू किया। नौ महीने बाद, R, ₹72000 की पूंजी के साथ उसके साथ व्यवसाय में शामिल हो गया। 3 वर्ष बाद, उन्होंने ₹50000 का लाभ अर्जित किया। लाभ में P का हिस्सा (₹ में, निकटतम पूर्णांक तक पूर्णांकित) कितना था?

(1) 13931
(2) 13882
(3) **14000** ✔
(4) 13902

Q.55 Find the LCM of the numbers 5, 3.2 and 0.03.

संख्याओं 5, 3.2 और 0.03 का लघुत्तम समापवर्त्य ज्ञात कीजिए।

(1) 120
(2) **240** ✔
(3) 160
(4) 480

Q.56 On what sum (in ₹) will ₹1680 be obtained as simple interest in 4 years at the rate of 4% per annum?

किस राशि (₹ में) पर 4 वर्षों में 4% वार्षिक ब्याज दर से साधारण ब्याज के रूप में ₹1680 प्राप्तहोगा?

(1) 10250
(2) **10500** ✔
(3) 10200
(4) 10550

Q.57 Find the average weight of five members of a family weighing 40 kg, 49 kg, 57 kg, 77 kg and 35 kg.

एक परिवार के 40 kg, 49 kg, 57 kg, 77 kg और 35 kg वजन वाले पांच सदस्यों का औसत वजन ज्ञात कीजिए।

(1) 51.6 kg ✔

(2) 52.6 kg

(3) 53.6 kg

(4) 50.6 kg

Q.58 A pipe can fill an empty tank in 11 hours, while another pipe can empty the full tank in 44 hours. If both pipes are opened together when the tank is empty, how many hours will it take to fill 3/4 part of the tank?

एक पाइप किसी खाली टंकी को 11 घंटे में भर सकता है, जबकि एक अन्य पाइप भरी हुई टंकी को 44 घंटे में खाली कर सकता है। यदि टंकी खाली होने पर दोनों पाइप एक साथ खोले जाएं, तो टंकी का 3/4 भाग भरने में कितने घंटे लगेंगे?

(1) 22

(2) 33

(3) 44

(4) 11 ✔

Q.59 A cone is inscribed in a sphere such that the radius of the cone is the same as the radius of the sphere and the height of the cone is equal to the diameter of the sphere. What is the relation between the volume of the sphere and the volume of the cone?

एक गोले के भीतर एक शंकु इस प्रकार अंतर्निहित है कि शंकु की त्रिज्या गोले की त्रिज्या के समान हैऔर शंकु की ऊंचाई गोले के व्यास के बराबर है। गोले के आयतन और शंकु के आयतन के बीच क्या संबंध है?

(1) The volume of the cone is two-thirds of the volume of the sphere. / शंकु का आयतन गोले के आयतन का दो-तिहाई है।

(2) The volume of the cone is one-third of the volume of the sphere. / शंकु का आयतन गोले के आयतन का एक-तिहाई है।

(3) The volume of the cone is three-fourths of the volume of the sphere. / शंकु का आयतन गोले के आयतन का तीन-चौथाई है।

(4) The volume of the sphere is twice the volume of the cone. / गोले का आयतन शंकु के आयतन का दोगुना है। ✔

Q.60 The distance between A and B is 1,223 km. Chaman travels from A to B at a speed of 77 km/hr and returns to A at a speed of 150 km/hr.
Find the average speed of Chaman (rounded off to two decimal places).

A और B के बीच की दूरी 1,223 km है। A से, चमन 77 km/hr की चाल से B तक जाता है और 150 km/hr की चाल से A पर वापस आ जाता है।
चमन की औसत चाल (दशमलव के दो स्थानों तक पूर्णांकित) ज्ञात कीजिए।

(1) 101.76 km/hr ✔

(2) 96.51 km/hr

(3) 96.35 km/hr

(4) 108.58 km/hr

English Language and Comprehension

Q.61 Parts of a sentence are given below. While the first part is in the correct place, the remaining parts (labelled A, B, C and D) are jumbled up. Arrange the parts in the correct order to form a meaningful and coherent sentence.
The talented musician
(A) melody on the piano, captivating
(B) skilfully played the beautiful
(C) their performance
(D) the audience with

(1) BCAD
(2) **BADC ✔**
(3) DACB
(4) ABCD

Q.62 Select the most appropriate option to substitute the underlined word segment in the given sentence.
Since the task was straightforward, the manager reminded the team that a simple and easy task can be quickly done.

(1) **a bald head is soon shaved ✔**
(2) a little pot is soon hot
(3) a stitch in time saves nine
(4) a guilty conscience needs no accuser

Q.63 Select the most appropriate verb to fill in the blank.
Yesterday, they ___ indoors because of the storm.

(1) **stayed ✔**
(2) staying
(3) stay
(4) stays

Q.64 Select the most appropriate article to fill in the blank. If no article is needed, select 'No article required'.
He had _____ idea about how to solve the problem.

(1) **an ✔**
(2) No article required
(3) the
(4) a

Q.65 Q.5 Choose the option which will correctly substitute the underlined words.
I always tell my students that practical work is more important than mere words.

(1) The early bird catches the worm
(2) **Actions speak louder than words ✔**
(3) Jack of all trades, master of none
(4) A penny saved is a penny earned

Q.66 Choose the most appropriate option to fill in the given blanks.
He didn't come to class ___ he was sick, ___ he sent his assignment.

(1) as, or
(2) although, and
(3) **because, but ✔**
(4) since, and

Q.67 A sentence has been broken into parts, jumbled, and marked as PQRST.
Arrange all the parts to make a coherent sentence.
P) which demonstrated a new method Q) the scientist presented her research R) useful biodegradable materials S) for converting plastic waste into T) with remarkable efficiency

(1) TSRQP
(2) SQPRT
(3) PQSTR
(4) **QPSRT ✔**

Q.68 Choose the option that expresses the antonym of 'impecunious' as used in the sentence.
Despite being impecunious in his early years, the scientist pursued his research with unwavering dedication.

(1) valiant
(2) **affluent ✔**
(3) frugal
(4) destitute

Q.69 Select the option that can be used as a one-word substitute for the given group of words/phrase.
A person who studies the science of the universe beyond the Earth's atmosphere

(1) Geologist
(2) Biologist
(3) **Astronomer ✔**
(4) Meteorologist

Q.70 Rectify the given sentence by selecting the correct spelling of the misspelt word from the options.
The teacher explained the significanse of hard work in achieving success, emphasizing that patience and dedication are the true keys to reaching one's goals in life.

(1) acheving
(2) **significance ✔**
(3) sucess
(4) techer

Q.71 Fill in the blank with the correctly spelt word.
_____ lines in geometry never intersect regardless of how far they extend.

(1) Paralel
(2) Parrallel
(3) Paralell
(4) **Parallel ✔**

Q.72 Choose the option that best completes the sentence using an appropriate adverb.
Though unfamiliar with the topic, he responded to the questions _____.

(1) confidently ✔
(2) thoughtfully
(3) nervously
(4) cautiously

Q.73 Choose the synonym of the highlighted word from the options given below.
He tried to cajole his friend into joining the trip by promising it would be unforgettable.

(1) ignore
(2) insult
(3) persuade ✔
(4) force

Q.74 Select the most appropriate articles to fill in the blanks.
He went out with __ umbrella knowing that __ little distance away, he was going to witness rain.

(1) a; an
(2) an; the
(3) the; an
(4) an; a ✔

Q.75 Replace the highlighted word segment with the appropriate one-word substitute.
The country's government ruled by a small, powerful group made decisions that benefited only a few.

(1) oligarchy ✔
(2) anarchy
(3) democracy
(4) theocracy

Quick Sarkari

Q.76

Read the passage and answer the questions that follow.
A new study published in Science provides clear evidence of organic matter on Mars's surface. NASA's rover Curiosity collected the data, confirming earlier findings that Mars once had carbon- based compounds essential for life. These organic molecules were found in Gale Crater, an area that may have been a lake over three billion years ago. The rocks containing the organics also had sulfur, which might have preserved them despite harsh surface radiation. While the presence of organic molecules doesn't prove ancient life—since they could form through non-living processes —it's a significant discovery. About five years ago, Curiosity also detected methane, a basic organic molecule and natural gas component, in the Martian atmosphere. Methane only lasts a few hundred years, suggesting an unknown source replenishes it. Its levels fluctuate seasonally, possibly due to underground icy crystals releasing gas. These findings indicate Mars is more active than thought and might be becoming more habitable. Future missions, like ESA's Exo Mars and NASA's Mars Rover in 2020, aim to explore the soil and atmosphere further, potentially answering if life ever existed on Mars.

Identify the central theme of the passage.

(1) Searching for water on Mars
(2) **Discovery of organic matter and its implication for life on Mars ✔**
(3) Mars' atmospheric changes
(4) Technical features of the Mars Rover

Q.77

Read the passage and answer the questions that follow.
A new study published in Science provides clear evidence of organic matter on Mars's surface. NASA's rover Curiosity collected the data, confirming earlier findings that Mars once had carbon- based compounds essential for life. These organic molecules were found in Gale Crater, an area that may have been a lake over three billion years ago. The rocks containing the organics also had sulfur, which might have preserved them despite harsh surface radiation. While the presence of organic molecules doesn't prove ancient life—since they could form through non-living processes —it's a significant discovery. About five years ago, Curiosity also detected methane, a basic organic molecule and natural gas component, in the Martian atmosphere. Methane only lasts a few hundred years, suggesting an unknown source replenishes it. Its levels fluctuate seasonally, possibly due to underground icy crystals releasing gas. These findings indicate Mars is more active than thought and might be becoming more habitable. Future missions, like ESA's Exo Mars and NASA's Mars Rover in 2020, aim to explore the soil and atmosphere further, potentially answering if life ever existed on Mars.

Identify the fact stated in the passage.

(1) Organic molecules prove ancient life on Mars.
(2) **Organic molecules were found in Gale Crater. ✔**
(3) Sulphur destroys organic molecules on Mars.
(4) Methane on Mars lasts for millions of years.

Q.78

Read the passage and answer the questions that follow.
A new study published in Science provides clear evidence of organic matter on Mars's surface. NASA's rover Curiosity collected the data, confirming earlier findings that Mars once had carbon- based compounds essential for life. These organic molecules were found in Gale Crater, an area that may have been a lake over three billion years ago. The rocks containing the organics also had sulfur, which might have preserved them despite harsh surface radiation. While the presence of organic molecules doesn't prove ancient life—since they could form through non-living processes —it's a significant discovery. About five years ago, Curiosity also detected methane, a basic organic molecule and natural gas component, in the Martian atmosphere. Methane only lasts a few hundred years, suggesting an unknown source replenishes it. Its levels fluctuate seasonally, possibly due to underground icy crystals releasing gas. These findings indicate Mars is more active than thought and might be becoming more habitable. Future missions, like ESA's Exo Mars and NASA's Mars Rover in 2020, aim to explore the soil and atmosphere further, potentially answering if life ever existed on Mars.

What is the antonym of the word "preserved" as used in the passage?

(1) Protected
(2) Saved
(3) Destroyed ✔
(4) Maintained

Q.79

Read the passage and answer the questions that follow.
A new study published in Science provides clear evidence of organic matter on Mars's surface. NASA's rover Curiosity collected the data, confirming earlier findings that Mars once had carbon- based compounds essential for life. These organic molecules were found in Gale Crater, an area that may have been a lake over three billion years ago. The rocks containing the organics also had sulfur, which might have preserved them despite harsh surface radiation. While the presence of organic molecules doesn't prove ancient life—since they could form through non-living processes —it's a significant discovery. About five years ago, Curiosity also detected methane, a basic organic molecule and natural gas component, in the Martian atmosphere. Methane only lasts a few hundred years, suggesting an unknown source replenishes it. Its levels fluctuate seasonally, possibly due to underground icy crystals releasing gas. These findings indicate Mars is more active than thought and might be becoming more habitable. Future missions, like ESA's Exo Mars and NASA's Mars Rover in 2020, aim to explore the soil and atmosphere further, potentially answering if life ever existed on Mars.

Select the correct summary for the passage.

(1) The passage details Mars Rover's technical instruments only.
(2) Mars has no signs of organic material or past life.
(3) Mars is too harsh for any organic matter to survive.
(4) NASA's rover detected organic compounds on Mars, hinting at past life. ✔

QuickSarkari.com | WhatsApp Channel | Telegram: t.me/quick_sarkari

Q.80

Read the passage and answer the questions that follow.
A new study published in Science provides clear evidence of organic matter on Mars's surface. NASA's rover Curiosity collected the data, confirming earlier findings that Mars once had carbon- based compounds essential for life. These organic molecules were found in Gale Crater, an area that may have been a lake over three billion years ago. The rocks containing the organics also had sulfur, which might have preserved them despite harsh surface radiation. While the presence of organic molecules doesn't prove ancient life—since they could form through non-living processes —it's a significant discovery. About five years ago, Curiosity also detected methane, a basic organic molecule and natural gas component, in the Martian atmosphere. Methane only lasts a few hundred years, suggesting an unknown source replenishes it. Its levels fluctuate seasonally, possibly due to underground icy crystals releasing gas. These findings indicate Mars is more active than thought and might be becoming more habitable. Future missions, like ESA's Exo Mars and NASA's Mars Rover in 2020, aim to explore the soil and atmosphere further, potentially answering if life ever existed on Mars.

The passage's tone when describing future missions can best be described as:

(1) Pessimistic
(2) Dismissive
(3) **Optimistic ✔**
(4) Apathetic

Hindi Language and Comprehension

Q.81 "आँखों में धूल झोंकना"- मुहावरे का क्या अर्थ है?

(1) नज़रों से ओझल हो जाना
(2) **धोखा देना ✔**
(3) गैर-कानूनी कार्य करना
(4) हाथ की सफाई दिखाना

Q.82 निम्नलिखित विकल्पों में से रेखांकित शब्द का पर्यायवाची पहचानिए।
'प्रातः सूर्य की किरणों के स्पर्श से तालाब में खिला कमल और भी मनमोहक दिखाई देने लगा है।'

(1) शुनक
(2) **सरसिज ✔**
(3) अंशु
(4) तुषार

Q.83 अब मैं अनाथ हो गई हूँ ।
उपर्युक्त रेखांकित शब्द का विलोम क्या होगा ?

(1) अकीर्ति
(2) सदोष
(3) **सनाथ ✔**
(4) निस्सीम

Q.84 'गोद लिया हुआ लड़का' वाक्यांश के लिए सार्थक शब्द होगा -

(1) दत्त

(2) दगहा

(3) दत्तचित्त

(4) **दत्तक ✔**

Q.85 उपयुक्त विशेषण का चयन कर दिए गए वाक्य को पूर्ण कीजिए।
दिलीप उस्मान से .....खाना खाता है ।

(1) एक

(2) पहला

(3) **तिगुना ✔**

(4) प्रत्येक

Q.86 'संकट के समय उसने ---------- सहायता की।' वाक्य के रिक्त स्थान के लिए क्रिया- विशेषण शब्द कौन-सा है?

(1) बूढ़ों की

(2) **बहुत ✔**

(3) गरीबों की

(4) लोगों की

Q.87 'अत्यंत प्रसन्न होना' अर्थ के लिए सही मुहावरा क्या है?

(1) मीठी छुरी चलाना

(2) बेपेंदी का लोटा

(3) नाक भौं चढ़ाना

(4) **बाछें खिल जाना ✔**

Q.88 निम्नलिखित वाक्यांशों को उचित क्रम में लगाकर एक शुद्ध वाक्य बनाइए:
1- जिस संज्ञा या सर्वनाम 2- प्रकट की जाती है 3- शब्द की विशेषता 4- उसे विशेष्य कहते हैं

(1) 4, 3, 1, 2

(2) 2, 3, 1, 4

(3) **1, 3, 2, 4 ✔**

(4) 3, 4, 2, 1

Q.89 निम्न में से 'एक तो करेला कड़ुआ, दूसरे नीम चढ़ा' लोकोक्ति का सही अर्थ कौन-सा है ?

(1) निकम्मा आदमी बातूनी होता है

(2) जैसा करोगे वैसा पाओगे

(3) **कुसंग में पड़कर और बुरा होना ✔**

(4) एक वस्तु और चाहने वाले अनेक

Q.90 निम्नलिखित वाक्य के रिक्त स्थान में उचित परिमाणवाचक क्रिया-विशेषण शब्द का प्रयोग करें - 'बच्चे को पीने के लिए दूध दे दो।'

(1) अत्यंत

(2) आगे

(3) ठीक

(4) **थोड़ा ✔**

QuickSarkari.com | WhatsApp Channel | Telegram: t.me/quick_sarkari

Q.91 निम्न में से वाक्य में रेखांकित शब्द का विलोम शब्द कौन-सा है ?
'मेरा पड़ोसी बहुत ही अनुदार व्यक्ति है।'

(1) सुधार
(2) ऊसर
(3) **उदार ✔**
(4) कुटज

Q.92 निम्नलिखित विकल्पों में से रेखांकित शब्द का विलोम पहचानिए।
'मेरा स्पष्ट मानना है कि जो व्यक्ति दूसरों की निंदा में समय नष्ट नहीं करता, वही अपने जीवन में आगे बढ़ता है।'

(1) **स्तुति ✔**
(2) श्रुति
(3) नत
(4) विनत

Q.93 'उखड़े बाल ना और नाम बलवंत सिंह' लोकोक्ति का सही अर्थ क्या है ?

(1) **नाम के अनुरूप गुण का नहीं होना ✔**
(2) दर-बदर होना
(3) अव्यवहारिक बात करना
(4) महाशक्तिशाली होना

Q.94 उचित क्रिया विशेषण शब्द से वाक्य पूरा कीजिए।
' वह _____ जाएगा।'

(1) अतिशय
(2) थोड़ा
(3) **बिल्कुल ✔**
(4) प्रत्यक्ष

Q.95 "जब तक वर्षा नहीं_____ किसान खेती शुरू नहीं करेंगे।" रिक्त स्थान की पूर्ति उचित क्रिया शब्द से करें।

(1) हो
(2) होती
(3) **होगी ✔**
(4) हुए

QuickSarkari.com | WhatsApp Channel | Telegram: t.me/quick_sarkari

Q.96

नीचे दिए गए परिच्छेद को ध्यानपूर्वक पढ़ें और उसके आधार पर पूछे गए प्रश्नों के उत्तर दें।
भारत में नाटक साहित्य की एक ऐसी विधा है, जिसकी लंबी परंपरा पाई जाती है। भारत में ही नाट्यशास्त्र की रचना सबसे पहले हुई। यहाँ नाट्यशास्त्र के अनेक आचार्य हुए, जिन्होंने नाटक पर बड़े विस्तार और गंभीरता से इस विधा पर विचार किया है। इनमें भरत, धनंजय, रामचंद्र-गुणचंद्र, अभिनवगुप्त, विश्वनाथ आदि के नाम अधिक प्रसिद्ध हैं। आचार्य धनंजय ने नाटक की परिभाषा इस प्रकार बताई है- अवस्था की अनुकृति नाटक है। यह परिभाषा सार्थक, व्यावहारिक और उपयोगी है। नाटक में अनुकरण तत्त्व की प्रधानता है। साहित्य की सभी विधाओं में नाटक ही वह विधा है, जिसमें अनुकरण पर सर्वाधिक बल दिया गया है। यह अनुकरण किसका होता है? उत्तर है- कार्य, अर्थात मानवीय जीवन के क्रियाशील कार्यों का। मनुष्य अनेक परिस्थितियों से हर क्षण गुजरता है। उसकी विभिन्न अवस्थाएँ होती हैं। भिन्न-भिन्न अवस्थाओं में रहने के कारण उसके जीवन-रंगमंच पर अनेक दृश्य (स्थितियाँ) आते-जाते रहते हैं। नाटककार नाटक की रचना करते समय इन्हीं स्थितियों का अनुकरण करता है। नाटक में जीवन का यथार्थमूलक अनुकरण होते हुए भी नाटककार सर्जनात्मक कल्पना करता है। यही कल्पना नाटक को साहित्य की विधा प्रदान करती है। इसलिए नाटक एक ऐसी कला है, जिसमें अनुकरण और कल्पना दोनों का योग रहता है। इसका उद्देश्य पहले शिक्षण और मनोरंजन था।

भारत में नाटक साहित्य की परंपरा के संदर्भ में कौन-सा कथन सही है?

(1) नाट्यशास्त्र की रचना सर्वप्रथम भारत में हुई। ✔
(2) भारत में नाटक साहित्य का विकास मध्यकाल में हुआ।
(3) नाटक साहित्य की परंपरा भारत में अल्पकालिक रही।
(4) भारत में नाटक का विकास केवल संस्कृत तक सीमित रहा।

Q.97

नीचे दिए गए परिच्छेद को ध्यानपूर्वक पढ़ें और उसके आधार पर पूछे गए प्रश्नों के उत्तर दें।
भारत में नाटक साहित्य की एक ऐसी विधा है, जिसकी लंबी परंपरा पाई जाती है। भारत में ही नाट्यशास्त्र की रचना सबसे पहले हुई। यहाँ नाट्यशास्त्र के अनेक आचार्य हुए, जिन्होंने नाटक पर बड़े विस्तार और गंभीरता से इस विधा पर विचार किया है। इनमें भरत, धनंजय, रामचंद्र-गुणचंद्र, अभिनवगुप्त, विश्वनाथ आदि के नाम अधिक प्रसिद्ध हैं। आचार्य धनंजय ने नाटक की परिभाषा इस प्रकार बताई है- अवस्था की अनुकृति नाटक है। यह परिभाषा सार्थक, व्यावहारिक और उपयोगी है। नाटक में अनुकरण तत्त्व की प्रधानता है। साहित्य की सभी विधाओं में नाटक ही वह विधा है, जिसमें अनुकरण पर सर्वाधिक बल दिया गया है। यह अनुकरण किसका होता है? उत्तर है- कार्य, अर्थात मानवीय जीवन के क्रियाशील कार्यों का। मनुष्य अनेक परिस्थितियों से हर क्षण गुजरता है। उसकी विभिन्न अवस्थाएँ होती हैं। भिन्न-भिन्न अवस्थाओं में रहने के कारण उसके जीवन-रंगमंच पर अनेक दृश्य (स्थितियाँ) आते-जाते रहते हैं। नाटककार नाटक की रचना करते समय इन्हीं स्थितियों का अनुकरण करता है। नाटक में जीवन का यथार्थमूलक अनुकरण होते हुए भी नाटककार सर्जनात्मक कल्पना करता है। यही कल्पना नाटक को साहित्य की विधा प्रदान करती है। इसलिए नाटक एक ऐसी कला है, जिसमें अनुकरण और कल्पना दोनों का योग रहता है। इसका उद्देश्य पहले शिक्षण और मनोरंजन था।

निम्नलिखित में से नाटक पर विचार करने वाले प्रमुख आचार्यों में कौन-सा नाम गद्यांश में उल्लिखित नहीं है?

(1) भरत
(2) मम्मट ✔
(3) अभिनवगुप्त
(4) धनंजय

Q.98

नीचे दिए गए परिच्छेद को ध्यानपूर्वक पढ़ें और उसके आधार पर पूछे गए प्रश्नों के उत्तर दें।
भारत में नाटक साहित्य की एक ऐसी विधा है, जिसकी लंबी परंपरा पाई जाती है। भारत में ही नाट्यशास्त्र की रचना सबसे पहले हुई। यहाँ नाट्यशास्त्र के अनेक आचार्य हुए, जिन्होंने नाटक पर बड़े विस्तार और गंभीरता से इस विधा पर विचार किया है। इनमें भरत, धनंजय, रामचंद्र-गुणचंद्र, अभिनवगुप्त, विश्वनाथ आदि के नाम अधिक प्रसिद्ध हैं। आचार्य धनंजय ने नाटक की परिभाषा इस प्रकार बताई है- अवस्था की अनुकृति नाटक है। यह परिभाषा सार्थक, व्यावहारिक और उपयोगी है। नाटक में अनुकरण तत्त्व की प्रधानता है। साहित्य की सभी विधाओं में नाटक ही वह विधा है, जिसमें अनुकरण पर सर्वाधिक बल दिया गया है। यह अनुकरण किसका होता है? उत्तर है- कार्य, अर्थात मानवीय जीवन के क्रियाशील कार्यों का। मनुष्य अनेक परिस्थितियों से हर क्षण गुजरता है। उसकी विभिन्न अवस्थाएँ होती हैं। भिन्न-भिन्न अवस्थाओं में रहने के कारण उसके जीवन-रंगमंच पर अनेक दृश्य (स्थितियाँ) आते-जाते रहते हैं। नाटककार नाटक की रचना करते समय इन्हीं स्थितियों का अनुकरण करता है। नाटक में जीवन का यथार्थमूलक अनुकरण होते हुए भी नाटककार सर्जनात्मक कल्पना करता है। यही कल्पना नाटक को साहित्य की विधा प्रदान करती है। इसलिए नाटक एक ऐसी कला है, जिसमें अनुकरण और कल्पना दोनों का योग रहता है। इसका उद्देश्य पहले शिक्षण और मनोरंजन था।

आचार्य धनंजय के अनुसार नाटक की परिभाषा क्या है?

(1) कल्पना और यथार्थ का समन्वय
(2) **अवस्था की अनुकृति ✔**
(3) रस की अनुभूति कराने वाली विधा
(4) जीवन की कलात्मक अभिव्यक्ति

Q.99

नीचे दिए गए परिच्छेद को ध्यानपूर्वक पढ़ें और उसके आधार पर पूछे गए प्रश्नों के उत्तर दें।
भारत में नाटक साहित्य की एक ऐसी विधा है, जिसकी लंबी परंपरा पाई जाती है। भारत में ही नाट्यशास्त्र की रचना सबसे पहले हुई। यहाँ नाट्यशास्त्र के अनेक आचार्य हुए, जिन्होंने नाटक पर बड़े विस्तार और गंभीरता से इस विधा पर विचार किया है। इनमें भरत, धनंजय, रामचंद्र-गुणचंद्र, अभिनवगुप्त, विश्वनाथ आदि के नाम अधिक प्रसिद्ध हैं। आचार्य धनंजय ने नाटक की परिभाषा इस प्रकार बताई है- अवस्था की अनुकृति नाटक है। यह परिभाषा सार्थक, व्यावहारिक और उपयोगी है। नाटक में अनुकरण तत्त्व की प्रधानता है। साहित्य की सभी विधाओं में नाटक ही वह विधा है, जिसमें अनुकरण पर सर्वाधिक बल दिया गया है। यह अनुकरण किसका होता है? उत्तर है- कार्य, अर्थात मानवीय जीवन के क्रियाशील कार्यों का। मनुष्य अनेक परिस्थितियों से हर क्षण गुजरता है। उसकी विभिन्न अवस्थाएँ होती हैं। भिन्न-भिन्न अवस्थाओं में रहने के कारण उसके जीवन-रंगमंच पर अनेक दृश्य (स्थितियाँ) आते-जाते रहते हैं। नाटककार नाटक की रचना करते समय इन्हीं स्थितियों का अनुकरण करता है। नाटक में जीवन का यथार्थमूलक अनुकरण होते हुए भी नाटककार सर्जनात्मक कल्पना करता है। यही कल्पना नाटक को साहित्य की विधा प्रदान करती है। इसलिए नाटक एक ऐसी कला है, जिसमें अनुकरण और कल्पना दोनों का योग रहता है। इसका उद्देश्य पहले शिक्षण और मनोरंजन था।

साहित्य की सभी विधाओं में नाटक को विशिष्ट बनाने वाला प्रमुख तत्त्व कौन-सा है?

(1) संवाद
(2) **कल्पना ✔**
(3) अनुकरण
(4) रस

Q.100

नीचे दिए गए परिच्छेद को ध्यानपूर्वक पढ़ें और उसके आधार पर पूछे गए प्रश्नों के उत्तर दें।
भारत में नाटक साहित्य की एक ऐसी विधा है, जिसकी लंबी परंपरा पाई जाती है। भारत में ही नाट्यशास्त्र की रचना सबसे पहले हुई। यहाँ नाट्यशास्त्र के अनेक आचार्य हुए, जिन्होंने नाटक पर बड़े विस्तार और गंभीरता से इस विधा पर विचार किया है। इनमें भरत, धनंजय, रामचंद्र-गुणचंद्र, अभिनवगुप्त, विश्वनाथ आदि के नाम अधिक प्रसिद्ध हैं। आचार्य धनंजय ने नाटक की परिभाषा इस प्रकार बताई है- अवस्था की अनुकृति नाटक है। यह परिभाषा सार्थक, व्यावहारिक और उपयोगी है। नाटक में अनुकरण तत्त्व की प्रधानता है। साहित्य की सभी विधाओं में नाटक ही वह विधा है, जिसमें अनुकरण पर सर्वाधिक बल दिया गया है। यह अनुकरण किसका होता है? उत्तर है- कार्य, अर्थात मानवीय जीवन के क्रियाशील कार्यों का। मनुष्य अनेक परिस्थितियों से हर क्षण गुजरता है। उसकी विभिन्न अवस्थाएँ होती हैं। भिन्न-भिन्न अवस्थाओं में रहने के कारण उसके जीवन-रंगमंच पर अनेक दृश्य (स्थितियाँ) आते-जाते रहते हैं। नाटककार नाटक की रचना करते समय इन्हीं स्थितियों का अनुकरण करता है। नाटक में जीवन का यथार्थमूलक अनुकरण होते हुए भी नाटककार सर्जनात्मक कल्पना करता है। यही कल्पना नाटक को साहित्य की विधा प्रदान करती है। इसलिए नाटक एक ऐसी कला है, जिसमें अनुकरण और कल्पना दोनों का योग रहता है। इसका उद्देश्य पहले शिक्षण और मनोरंजन था।

गद्यांश के अनुसार नाटक को साहित्य की विधा बनाने वाला प्रमुख कारण क्या है?

(1) अनुकरण के साथ सर्जनात्मक कल्पना का योग ✔

(2) केवल मनोरंजन का उद्देश्य

(3) केवल यथार्थ का चित्रण

(4) शिक्षण की प्रधानता

Assistant Teacher (Primary) – PRT

Q.101 If a curriculum is described as a plan for learning that translates the vision of planners into learning experiences, what key elements must be present?

यदि पाठ्यचर्या को अधिगम की एक ऐसी योजना के रूप में वर्णित किया जाता है जो योजनाकारों की दृष्टि को अधिगम अनुभवों में रूपांतरित करती है, तो इसमें कौन-से प्रमुख तत्व अवश्य उपस्थित होने चाहिए?

(1) Cultural events, sports activities, and student clubs / सांस्कृतिक कार्यक्रम, खेलकूद गतिविधियाँ और छात्र क्लब

(2) Purpose, definite structure, and learning experiences / उद्देश्य, निश्चित संरचना और अधिगम अनुभव ✔

(3) Library resources, cafeteria services, and transportation / पुस्तकालय संसाधन, कैंटीन सेवाएँ और परिवहन

(4) Schedule, study materials, and grading policy / समय-सारणी, अध्ययन सामग्री और ग्रेडिंग नीति

Q.102 If a society only allows sons to inherit property despite laws for equality, which type of gender inequality does this represent?

यदि समानता के कानूनों के बावजूद कोई समाज केवल पुत्रों को ही संपत्ति का उत्तराधिकार देता है, तो यह किस प्रकार की लैंगिक असमानता को दर्शाता है?

(1) Ownership inequality / स्वामित्व असमानता ✔

(2) Natality inequality / जन्म संबंधी असमानता

(3) Household inequality / पारिवारिक असमानता

(4) Professional inequality / व्यावसायिक असमानता

Q.103 A preschool teacher observes that Riya can button her shirt but has difficulty hopping on one foot. What does this indicate?

एक पूर्व-विद्यालयी शिक्षिका देखती है कि रिया अपनी शर्ट के बटन लगा सकती है लेकिन उसे एक पैर पर कूदने में उसे कठिनाई होती है। यह क्या इंगित करता है?

(1) Fine motor skills are more developed than gross motor skills. / सूक्ष्म गत्यात्मक कौशल, स्थूल गत्यात्मक कौशलों की तुलना में अधिक विकसित हैं। ✔

(2) Underdeveloped sensory integration causing bilateral confusion. / अल्पविकसित संवेदी एकीकरण जिसके कारण द्विपक्षीय संभ्रम होता है।

(3) Delay in cognitive sequencing abilities is affecting motor coordination. / संज्ञानात्मक अनुक्रमण क्षमताओं में देरी गत्यात्मक समन्वय को प्रभावित कर रही है।

(4) Insufficient maturation of language-mediated motor planning / भाषा-मध्यस्थ गत्यात्मक नियोजन की अपर्याप्त परिपक्वता

Q.104 A school is revising its curriculum so that it better understands the diverse cultural backgrounds of its students while meeting core academic standards.
Which approach best demonstrates an effective response to the concept and need of curriculum in this scenario?

एक विद्यालय अपने पाठ्यचर्या को संशोधित कर रहा है ताकि वह मुख्य शैक्षणिक मानकों को पूरा करने के साथ-साथ अपने विद्यार्थियों की विविध सांस्कृतिक पृष्ठभूमियों को बेहतर ढंग से समझ सके।
इस परिदृश्य में पाठ्यचर्या की अवधारणा और आवश्यकता के प्रति प्रभावी अनुक्रिया को कौन-सा उपागम सर्वोत्तम रूप से प्रदर्शित करता है?

(1) Focusing the curriculum only on standardised testing requirements / पाठ्यचर्या को केवल मानकीकृत परीक्षण आवश्यकताओं पर केंद्रित करना

(2) Designing separate multicultural modules for each group / प्रत्येक समूह के लिए अलग-अलग बहुसांस्कृतिक मॉड्यूल डिजाइन करना

(3) Integrating multicultural content into standard learning objectives / मानक अधिगम उद्देश्यों में बहुसांस्कृतिक विषयवस्तु का एकीकरण करना ✔

(4) Reducing academic content to include multicultural content / बहुसांस्कृतिक विषयवस्तु के समावेश के लिए शैक्षणिक विषयवस्तु को कम करना

Q.105 Under Section 4 of the RTE Act, which institutions are required to admit out-of-school children to classes appropriate to their age?

आरटीई अधिनियम की धारा 4 के अंतर्गत किन संस्थानों को विद्यालय से बाहर रहने वाले बच्चों (out-of-school children) को उनकी आयु के अनुसार उपयुक्त कक्षाओं में प्रवेश देना अनिवार्य है?

(1) All schools in the country / देश के सभी विद्यालय

(2) Private unaided institutions / निजी गैर-सहायता प्राप्त संस्थान

(3) Government and local schools / सरकारी और स्थानीय विद्यालय ✔

(4) Private aided institutions / निजी सहायता प्राप्त संस्थान

Q.106 Which two guiding principles were added to the Preamble by the 42nd Amendment in 1976?

1976 में 42वें संशोधन द्वारा प्रस्तावना में कौन-से दो मार्गदर्शक सिद्धांत जोड़े गए थे?

(1) Sovereign and Democratic / संप्रभु और लोकतांत्रिक

(2) Socialist and Secular / समाजवादी और पंथनिरपेक्ष ✔

(3) Secular and Republic / पंथनिरपेक्ष और गणराज्य

(4) Democratic and Republic / लोकतांत्रिक और गणराज्य

Q.107 Which limitation of the preschool stage hinders understanding another person's point of view?

पूर्व-विद्यालय (preschool) की कौन-सी सीमाबंधन किसी अन्य के दृष्टिकोण को समझने में बाधा डालती है?

(1) Conservation logic / संरक्षण तर्क (Conservation logic)

(2) **Egocentrism / अहंकेंद्रवाद (Egocentrism)** ✔

(3) Hypothetical thoughts / परिकल्पित विचार (Hypothetical thoughts)

(4) Decentration / विकेंद्रीयन (Decentration)

Q.108 At which stage do children begin to understand and follow rules because they want to maintain social order and gain approval from others?

बच्चे किस अवस्था में नियमों को समझना और उनका पालन करना शुरू करते हैं क्योंकि वे सामाजिक व्यवस्था बनाए रखना चाहते हैं और दूसरों से स्वीकृति प्राप्त करना चाहते हैं?

(1) Post-conventional stage / उत्तर-परंपरागत अवस्था (Post-conventional stage)

(2) Pre-conventional stage / पूर्व-परंपरागत अवस्था (Pre-conventional stage)

(3) Autonomous stage / स्वायत्त अवस्था (Autonomous stage)

(4) **Conventional stage / परंपरागत अवस्था (conventional stage)** ✔

Q.109 Which Article of the Indian Constitution provides facilities for instruction in the mother tongue at the primary stage?

भारतीय संविधान का कौन-सा अनुच्छेद प्राथमिक स्तर पर मातृभाषा में शिक्षण प्रदान करने की सुविधा देता है?

(1) Article 14A / अनुच्छेद 14A

(2) **Article 350A / अनुच्छेद 350A** ✔

(3) Article 22B / अनुच्छेद 22B

(4) Article 12B / अनुच्छेद 12B

Q.110 After observing recurring incidents of bullying, a school counsellor introduces empathy-building and self-control activities inspired by Buddhist and Islamic traditions. Which dimension of peace education is being emphasised?

बुलिंग (bullying) की आवर्ती घटनाओं को देखने के बाद, एक विद्यालय परामर्शदाता तदुनभूति- निर्माण और आत्म-नियंत्रण की गतिविधियाँ शुरू करता है, जो बौद्ध और इस्लामी परंपराओं से प्रेरित हैं। शांति शिक्षा के किस आयाम पर बल दिया जा रहा है?

(1) Strict enforcement of disciplinary measures / अनुशासनात्मक उपायों का सख्ती से प्रवर्तन

(2) Material incentives for compliance / अनुपालन के लिए भौतिक प्रोत्साहन

(3) Technological proficiency for academic progress / अकादमिक प्रगति के लिए प्रौद्योगिकीय प्रवीणता

(4) **Moral and spiritual development for inner harmony / आंतरिक सद्भाव के लिए नैतिक और आध्यात्मिक विकास** ✔

Q.111 What is it called when more people are engaged in a job that actually requires a smaller number of people?

जब अधिक लोग ऐसी नौकरी में लगे होते हैं जिसमें वास्तव में कम संख्या में लोगों की आवश्यकताहोती है, तो उसे क्या कहते है?

(1) Complete unemployment / पूर्ण बेरोजगारी (Complete unemployment)

(2) Partial unemployment / आंशिक बेरोजगारी (Partial unemployment)

(3) Pure unemployment / शुद्ध बेरोजगारी (Pure unemployment)

(4) **Disguised unemployment / प्रच्छन्न बेरोजगारी (Disguised unemployment)** ✔

Q.112 Rohan, a 5-year-old boy, is playing football. Which motor skill is being demonstrated in this context?
5 वर्षीय बालक रोहन फुटबॉल खेल रहा है। इस संदर्भ में कौन-सा पेशीय कौशल, प्रदर्शित किया जारहा है?

(1) Gross motor skill / सकल पेशीय कौशल (Gross motor skill) ✔
(2) Limited motor skill / सीमित पेशीय कौशल (Limited motor skill)
(3) Lite motor skill / स्थूल पेशीय कौशल (Lite motor skill)
(4) Fine motor skill / सूक्ष्म पेशीय कौशल (Fine motor skill)

Q.113 The transition from one Piagetian stage to another can best be described as _____.
एक पियाजे अवस्था से दूसरी पियाजे अवस्था में संक्रमण को सर्वोत्तम तरीके से _____ के रूप में वर्णित किया जा सकता है।

(1) entirely determined by environmental input / परिवेशी निवेश द्वारा पूरी तरह से निर्धारित करने
(2) sudden and dependent on test scores / अचानक और परीक्षा के अंकों पर निर्भर
(3) dependent only on linguistic development / केवल भाषाई विकास पर निर्भर
(4) variable across individuals but sequential / व्यक्तियों के बीच परिवर्ती लेकिन अनुक्रमिक ✔

Q.114 Which of the following is a basic principle of curriculum development?
निम्नलिखित में से कौन-सा, पाठ्यचर्या विकास का मूल सिद्धांत है?

(1) Ignoring the social context / सामाजिक संदर्भ की उपेक्षा करना
(2) Relevance to the needs of learners / शिक्षार्थियों की आवश्यकताओं के लिए प्रासंगिकता ✔
(3) Random selection of topics / टॉपिक का यादृच्छिक चयन
(4) Emphasising only the interests of teachers / केवल शिक्षकों की अभिरुचियों पर बल देना

Q.115 A teacher observes that a student, who was earlier confident in group work, has recently become withdrawn after repeated negative interactions with classmates. Based on this scenario, which social factor is most influencing the student's personality development?
एक शिक्षक ने देखा कि एक विद्यार्थी, जो पहले से समूह कार्य में आत्मविश्वास से भरा था, हाल ही में सहपाठियों के साथ बारंबार नकारात्मक अंत:क्रिया के बाद विमुख हो गया है। इस परिदृश्य के आधार पर, विद्यार्थी के व्यक्तित्व विकास को कौन-सा सामाजिक कारक सबसे अधिक प्रभावित कर रहा है?

(1) Insecurity arising due to sibling rivalry / भाई-बहन की प्रतिद्वंद्विता के कारण असुरक्षा उत्पन्न होना
(2) Prenatal factors influencing temperament / स्वभाव को प्रभावित करने वाले जन्मपूर्व कारक
(3) Withdrawal resulting from peer rejection / सहपाठी अस्वीकरण के परिणामस्वरुप विरक्ति ✔
(4) Confidence-boosting effective parenting / आत्मविश्वास वर्धक प्रभावशाली पालन-पोषण

Q.116 Which commission was set up in 1952-53 to review secondary education in India?
भारत में माध्यमिक शिक्षा की समीक्षा के लिए 1952-53 में किस आयोग की स्थापना की गई थी?

(1) Mudaliar Commission / मुदालियर आयोग ✔
(2) Radhakrishnan Commission / राधाकृष्णन आयोग
(3) Kothari Commission / कोठारी आयोग
(4) Hunter Commission / हंटर आयोग

Q.117 Which statement best reflects the basic concept of curriculum in modern education?

कौन-सा कथन आधुनिक शिक्षा में पाठ्यचर्या की मूल अवधारणा को सर्वोत्तम रूप से दर्शाता है?

(1) A fixed sequence of units and sub-units to be taught per session / प्रति सत्र पढ़ाए जाने वाले इकाइयों और उप-इकाइयों का एक निश्चित क्रम

(2) A structured plan of the total learning experiences for the learner / अधिगमकर्ता के लिए संपूर्ण अधिगम अनुभवों की एक संरचित योजना ✔

(3) A list of subject chapters prescribed for a grade / किसी ग्रेड के लिए निर्धारित विषय अध्यायों की सूची

(4) A compilation of textbooks authorised by an institution / किसी संस्थान द्वारा प्राधिकृत पाठ्यपुस्तकों का संकलन

Q.118 What makes personality different from other characteristics in psychological studies?

मनोवैज्ञानिक अध्ययनों में व्यक्तित्व को अन्य विशेषताओं से क्या अलग बनाता है?

(1) Interplay of biological and psychological phenomena / जैविक और मनोवैज्ञानिक घटनाओं की अन्योन्यक्रिया ✔

(2) Focusing on group dynamics / समूह गतिशीलता पर ध्यान केंद्रित करना

(3) Importance to physical appearance / शारीरिक प्रतीति को महत्व

(4) Disregard of individual differences / वैयक्तिक विभिन्नताओं की अवहेलना

Q.119 In class, Rehan always completes assignments on time and organises his work carefully. Using the Big Five model, which dimension of personality best describes Rehan's behaviour?

कक्षा में रेहान हमेशा समय पर असाइनमेंट पूरा करता है और अपने कार्य को ध्यानपूर्वक व्यवस्थित करता है। बिग फाइव मॉडल (Big Five model) का प्रयोग करते हुए, व्यक्तित्व का कौन-सा आयाम रेहान के व्यवहार का सर्वोत्तम ढंग से वर्णन करता है?

(1) High openness / अधिक खुलापन (High openness)

(2) High conscientiousness / उच्च अंतर्विवेकशीलता (High conscientiousness) ✔

(3) High neuroticism / उच्च मनस्तापीयता (High neuroticism)

(4) High agreeableness / उच्च सहमतिकारिता (High agreeableness)

Q.120 The principal of a secondary school established after the 1950s has to adopt a language teaching policy that works to promote national unity while preserving cultural diversity. Which constitutional strategy, supported by subsequent education policies, should the principal support?

1950 के दशक के बाद स्थापित एक माध्यमिक विद्यालय के प्रधानाचार्य को ऐसी भाषा शिक्षण नीति अंगीकृत करनी होगी जो सांस्कृतिक विविधता को संरक्षित करते हुए राष्ट्रीय एकता को प्रोत्साहित करने का कार्य करे। प्रधानाचार्य को उत्तरवर्ती शिक्षण नीतियों द्वारा समर्थित कौन-सी संवैधानिक कार्यनीति का समर्थन करना चाहिए?

(1) Giving priority to English-medium instruction / अंग्रेजी माध्यम के शिक्षण को प्राथमिकता देना

(2) Implementing the three-language formula / त्रि-भाषा सूत्र को कार्यान्वित करना ✔

(3) Compulsory education in the official language of the Union / संघीय राजभाषा में अनिवार्य शिक्षा

(4) Abolishing instruction in the regional language / क्षेत्रीय भाषा में शिक्षण को समाप्त करना

Q.121 Which model focuses on using literature to teach specific vocabulary and structural elements?

कौन-सा मॉडल विशिष्ट शब्दावली और संरचनात्मक तत्वों को पढ़ाने के लिए साहित्य के उपयोग पर केंद्रित है?

(1) The Language Model. / भाषा मॉडल। ✔

(2) The Scientific Model. / वैज्ञानिक मॉडल।

(3) The Personal Growth Model. / व्यक्तिगत विकास मॉडल।

(4) The Cultural Model. / सांस्कृतिक मॉडल।

Q.122 Which of the following scenarios best explains effective peer tutoring in an elementary classroom setting?

निम्नलिखित में से कौन-सा परिदृश्य, प्रारंभिक कक्षागत परिवेश में प्रभावी सहपाठी अनुशिक्षण की सर्वोत्तम व्याख्या करता है?

(1) Teachers are giving extra homework to struggling students. / शिक्षक संघर्षरत विद्यार्थियों को अतिरिक्त गृहकार्य दे रहे हैं।

(2) Parents are volunteering to help in classroom management. / अभिभावक कक्षागत प्रबंधन में सहायता के लिए स्वेच्छा से कार्य कर रहे हैं।

(3) Students are working independently on worksheets. / विद्यार्थी स्वतंत्र रूप से कार्यपत्रकों पर कार्य कर रहे हैं।

(4) Older students are guiding younger pupils in reading comprehension. / बड़े विद्यार्थी, छोटे शिष्यों को पठन बोध में मार्गदर्शन कर रहे हैं। ✔

Q.123 How does observational learning help in developing self-awareness in daily life?

अवलोकन अधिगम से दैनिक जीवन में आत्म-बोध विकसित करने में कैसे मदद मिलती है?

(1) It depends only on past achievements. / यह केवल पिछली उपलब्धियों पर निर्भर करता है।

(2) It encourages only seeking approval from others. / यह केवल दूसरों से अनुमोदन लेने के लिए प्रोत्साहित करता है।

(3) It promotes avoiding new experiences. / यह नए अनुभवों से बचने को बढ़ावा देता है।

(4) It helps in identifying personal patterns and reactions. / यह व्यक्तिगत प्रतिरूपों और प्रतिक्रियाओं की पहचान करने में मदद करता है। ✔

Q.124 Which method best supports experiential learning in undergraduate education?

स्नातक शिक्षा में अनुभवात्मक अधिगम को कौन-सी पद्धति सर्वोत्तम रूप से सहायता प्रदान करतीहै?

(1) Engaging in problem solving / समस्या समाधान में संलग्न होना ✔

(2) Reading a given article / दिए गए लेख को पढ़ना

(3) Attending lectures regularly / नियमित रूप से व्याख्यानों में उपस्थित होना

(4) Copying the teacher's notes / शिक्षक के नोट्स की नकल करना

Q.125 Which of the following is NOT considered an agent of socialisation?

निम्नलिखित में से किसे समाजीकरण का कारक नहीं माना जाता है?

(1) Community / समुदाय

(2) School / विद्यालय

(3) Heredity / आनुवंशिकता ✔

(4) Family / परिवार

Q.126 What is the main aim of mathematics education at the primary level?

प्राथमिक स्तर पर गणित शिक्षा का मुख्य उद्देश्य क्या होता है?

(1) Improving handwriting / लिखावट में सुधार करना

(2) Memorising multiplication tables / गुणन तालिकाओं को याद रखना

(3) Developing reasoning skills / तर्क कौशल विकसित करना ✔

(4) Focusing only on addition / केवल जोड़ पर फोकस करना

Q.127 Which of the following is NOT an appropriate practice to promote mindfulness in the classroom?
निम्नलिखित में से कौन-सा, कक्षा में सचेतनता को बढ़ावा देने के लिए उपयुक्त अभ्यास नहीं है?

(1) Starting each class with an appropriate atmosphere / प्रत्येक कक्षा की शुरुआत उपयुक्त माहौल के साथ करना

(2) **Separating mindful and non-mindful students / सचेत और गैर-सचेत विद्यार्थियों को पृथक करना ✔**

(3) Being aware of one's own role in setting the pace and mood of the class / अपनी कक्षा की गति और मनोदशा तय करने में अपनी भूमिका के प्रति अवगत रहना

(4) Starting each class with at least a few moments of guided mindfulness / प्रत्येक कक्षा की शुरुआत कम से कम निर्देशित सचेतन के कुछ क्षणों के साथ करना

Q.128 Which characteristic best describes a 'rule-governed system' in the context of language?
भाषा के संदर्भ में 'नियम-संचालित तंत्र' का सर्वोत्तम वर्णन कौन-सी विशेषता करती है?

(1) Language is based only on spoken words and written expressions. / भाषा केवल बोले गए शब्दों और लिखित अभिव्यक्तियों पर आधारित है।

(2) **Language operates with structured rules for grammar and sentence structure. / भाषा, व्याकरण और वाक्य संरचना के लिए संरचित नियमों के साथ संचालित होती है। ✔**

(3) Language is naturally evolving with new rules that can change. / भाषा स्वाभाविक रूप से नए नियमों के साथ विकसित हो रही है जिसमें परिवर्तन हो सकता है।

(4) Language has no structure or standard rules for all words. / भाषा में सभी शब्दों के लिए कोई संरचना या प्रामाणिक नियम नहीं होते हैं।

Q.129 During training, a student-teacher feels uneasy using innovative teaching methods. She analyses her beliefs regarding her abilities and seeks feedback for improvement. Which aspect of self-understanding is most relevant in her case?
प्रशिक्षण के दौरान, एक विद्यार्थी शिक्षिका को नवीन शिक्षण विधियों का प्रयोग करने पर बेचैनी महसूस होती है। वह अपनी क्षमताओं के संबंध में अपने विश्वासों का विश्लेषण करती है और सुधार के लिए प्रतिपुष्टि मांगती है। आत्म-समझ का कौन-सा पहलू उसके मामले में सर्वाधिक प्रासंगिक है?

(1) Using emotional regulation techniques to manage nervousness / घबराहट को प्रबंधित करने के लिए संवेगात्मक विनियमन तकनीकों का उपयोग करना

(2) Being conscious of her body language and non-verbal cues during instruction / अनुदेश के दौरान अपनी शारीरिक भाषा और अशाब्दिक संकेतों के प्रति सचेत रहना

(3) Understanding the duties and standards of conduct expected of teachers / शिक्षकों से अपेक्षित कर्तव्यों और आचरण मानकों को समझना

(4) **Reflecting on self-efficacy beliefs to build teaching confidence / शिक्षण आत्मविश्वास के निर्माण के लिए स्व-प्रभावकारिता विश्वासों पर चिंतन करना ✔**

Q.130 In a rule-based language system, what guides the formation of sentences?
नियम-आधारित भाषा प्रणाली में, वाक्यों के निर्माण को कौन निर्देशित करता है?

(1) **Specific rules for word order and structure. / शब्द क्रम और संरचना के लिए विशिष्ट नियम। ✔**

(2) Personal preferences of the speakers. / वक्ताओं की व्यक्तिगत प्राथमिकताएँ।

(3) Visual appearance of words. / शब्दों का दृश्य स्वरूप।

(4) Random selection of words. / शब्दों का यादृच्छिक चयन।

Q.131 Which strategy is most effective for assessing early language acquisition in a classroom with diverse learners?

विभिन्न शिक्षार्थियों वाली कक्षा में प्रारंभिक भाषा अर्जन का आकलन करने के लिए कौन-सी रणनीति सबसे प्रभावी होती है?

(1) Monitoring silent reading time / मौन पठन समय का अनुवीक्षण करना

(2) Conducting standardised written tests / मानकीकृत लिखित परीक्षाएँ आयोजित करना

(3) Checking the ability to memorise word lists / शब्द सूचियों को याद करने की क्षमता की जाँच करना

(4) **Observing interactive role-play scenarios / अंतःक्रियात्मक भूमिका-निर्वाह परिदृश्यों का अवलोकन करना ✔**

Q.132 A school wants to maximise the academic progress of its students without hiring additional staff. The administration decides to introduce classwide peer tutoring. Why is this approach considered cost-effective?

एक विद्यालय अतिरिक्त कर्मचारियों की नियुक्ति किए बिना अपने छात्रों की शैक्षणिक प्रगति को अधिकतम करना चाहता है। प्रशासन कक्षा-व्यापी सहपाठी शिक्षण (क्लासवाइड पीयर ट्यूटरिंग) शुरू करने का निर्णय लेता है। इस दृष्टिकोण को लागत-प्रभावी क्यों माना जाता है?

(1) **It extends instructional support using existing students. / यह मौजूदा छात्रों का उपयोग करके अनुदेशात्मक सहायता का विस्तार करता है। ✔**

(2) It requires significant investment in materials. / इसके लिए सामग्री में काफी निवेश की आवश्यकता होती है।

(3) It reduces the overall instructional time. / यह समग्र अनुदेशात्मक समय को कम करता है।

(4) It depends on external mentors for tutoring. / यह शिक्षण के लिए बाहरी मार्गदर्शकों पर निर्भर करता है।

Q.133 Why is literature considered an essential source of learning for children in the early years?

प्रारंभिक वर्षों में बच्चों के लिए साहित्य को अधिगम का एक अनिवार्य स्रोत क्यों माना जाता है?

(1) **It promotes ease and integrated language learning / यह सहजता और एकीकृत भाषा अधिगम को बढ़ावा देता है ✔**

(2) It teaches only vocabulary and grammar / यह केवल शब्दावली और व्याकरण सिखाता है

(3) It focuses entirely on memorising stories / यह पूर्ण रूप से कहानियों को याद करने पर केंद्रित है

(4) It replaces all other classroom activities / यह कक्षा की अन्य सभी गतिविधियों का स्थान ले लेता है

Q.134 A school is planning a week-long festival to help students imbibe Rabindranath Tagore's world-view. As highlighted in the Shantiniketan model, which activity best integrates Tagore's belief in harmony with nature and creative pedagogy?

एक विद्यालय, विद्यार्थियों को रवींद्रनाथ टैगोर के विश्व-दर्शन को आत्मसात करने में सहायता करने के लिए एक सप्ताह तक चलने वाले उत्सव की योजना बना रहा है। शांतिनिकेतन मॉडल में हाइलाइट किए गए अनुसार, कौन-सी गतिविधि टैगोर के प्रकृति के साथ सामंजस्य और रचनात्मक शिक्षाशास्त्र के विश्वास को सर्वोत्तम रूप से एकीकृत करती है?

(1) Conducting a competitive quiz on Tagore's life and achievements / टैगोर के जीवन और उपलब्धियों पर प्रतियोगी प्रश्नोत्तरी आयोजित करना

(2) **Organising open-air mural workshops on rural Bengal and environmental themes / ग्रामीण बंगाल और पर्यावरण विषयों पर खुले में भित्ति चित्र कार्यशालाओं का आयोजन करना ✔**

(3) Assigning personal essay writing on Tagore's Nobel Prize / टैगोर के नोबेल पुरस्कार पर व्यक्तिगत निबंध लेखन देना

(4) Organising lectures on the history of the Bengal Renaissance / बंगाल पुनर्जागरण के इतिहास पर व्याख्यान आयोजित करना

Q.135 During the preschool years (3-6), the extremely rapid growth of vocabulary from hundreds to thousands of words is mainly due to what?

पूर्व-विद्यालय वर्षों (3-6) के दौरान, शब्दावली में सैकड़ों से हजारों शब्दों की अत्यंत तीव्र वृद्धि मुख्य रूप से किस कारण से होती है?

(1) Formal grammar instruction and rote memorisation techniques / औपचारिक व्याकरण अनुदेश और रटन स्मरण की तकनीक

(2) **Incidental exposure through social interaction and a rich linguistic environment / सामाजिक अंतःक्रिया और समृद्ध भाषाई परिवेश के माध्यम से आकस्मिक संपर्क ✔**

(3) Special focus on reading printed material without oral practice / मौखिक अभ्यास के बिना मुद्रित सामग्री पठन पर विशेष ध्यान

(4) Repeated practice of isolated words in a structured classroom environment / कक्षाकक्ष के संरचित परिवेश में पृथक शब्दों का बार-बार अभ्यास करना

Q.136 Which foundational mindfulness program was developed to help people focus on their experiences and take responsibility for their well-being by understanding them?

किस मूलभूत सचेतनता कार्यक्रम (foundational mindfulness program) को लोगों को अपने अनुभवों पर ध्यान केंद्रित करने और उन्हें समझकर अपने कल्याण का उत्तरदायित्व लेने में सहायताकरने के लिए विकसित किया गया था?

(1) Mindfulness Emotional Regulation / सचेतन भावनात्मक विनियमन (Mindfulness Emotional Regulation)

(2) **Mindfulness-Based Stress Reduction / सचेतनता-आधारित तनाव न्यूनीकरण (Mindfulness-Based Stress Reduction) ✔**

(3) Mindfulness Acceptance Training / सचेतनता स्वीकरण प्रशिक्षण (Mindfulness Acceptance Training)

(4) Mindfulness-Based Cognitive Therapy / सचेतनता-आधारित संज्ञानात्मक चिकित्सा (Mindfulness-Based Cognitive Therapy)

Q.137 What is a major benefit of learning by observing oneself?

स्वयं का अवलोकन करने से अधिगम का एक प्रमुख लाभ क्या है?

(1) Imitating the behaviour of others in new situations / नई स्थितियों में दूसरों के व्यवहार का अनुकरण करना

(2) **Gaining awareness of one's personal strengths and weaknesses / अपनी व्यक्तिगत प्रत्ययकारिता और कमजोरियों के बारे में जागरूकता प्राप्त करना ✔**

(3) Avoiding mistakes in every activity / प्रत्येक क्रियाकलाप में गलतियों से बचना

(4) Depending on the opinion of others for self-assessment / स्व आकलन के लिए दूसरों की सम्मति पर निर्भर रहना

Q.138 Which of the following statements best describes the main objective of national integration in education?

निम्नलिखित में से कौन-सा कथन शिक्षा में राष्ट्रीय एकीकरण के मुख्य उद्देश्य का सर्वोत्तम वर्णन करता है?

(1) Encouraging competition between regions / क्षेत्रों के बीच प्रतिस्पर्धा को प्रोत्साहित करना

(2) Motivating international travel and exchange / अंतर्राष्ट्रीय यात्रा और विनिमय को प्रेरित करना

(3) Teaching only local history / केवल स्थानीय इतिहास पढ़ाना

(4) **Promoting unity among different groups / विभिन्न समूहों के बीच एकता को बढ़ावा देना ✔**

Q.139 A curriculum team is selecting a teaching approach to promote inclusivity and peer interaction. Which rationale most strongly supports their choice of peer tutoring?

एक पाठ्यचर्या टीम समावेशिता और सहपाठी अंतःक्रिया को बढ़ावा देने के लिए एक शिक्षण उपागम का चयन कर रही है। सहपाठी अनुशिक्षण के उनके चयन का सबसे प्रबल समर्थन कौन-सा तर्काधार करता है?

(1) It uses students' abilities for academic support. / यह शैक्षणिक सहायता के लिए विद्यार्थियों की क्षमताओं का उपयोग करता है। ✔

(2) It standardises all instructional delivery methods. / यह सभी अनुदेशात्मक वितरण विधियों को मानकीकृत करता है।

(3) It limits students' roles to only supervisors and participants. / यह विद्यार्थियों की भूमिकाओं को केवल पर्यवेक्षक और प्रतिभागी तक सीमित करता है।

(4) It reduces opportunities for flexible grouping. / यह लचीले समूह निर्माण के अवसरों को कम करता है।

Q.140 How do students benefit from experiential learning in the classroom?

कक्षा में अनुभवात्मक अधिगम (experiential learning) से विद्यार्थियों को क्या लाभ होता है?

(1) It discourages creativity. / यह रचनात्मकता को हतोत्साहित करता है।

(2) It only improves memory. / यह केवल स्मृति में सुधार करता है।

(3) It limits social interaction. / यह सामाजिक अन्तःक्रिया को सीमित करता है।

(4) It leads to cognitive, attitudinal and behavioural changes. / यह संज्ञानात्मक, अभिवृत्तिक और व्यवहारात्मक परिवर्तनों की ओर ले जाता है। ✔

Q.141 Why is educational leadership considered broader than instructional leadership?

शैक्षिक नेतृत्व को अनुदेशनात्मक नेतृत्व की तुलना में व्यापक क्यों माना जाता है?

(1) It limits leadership to only the head's duties. / यह नेतृत्व को केवल प्रमुख कर्तव्यों तक सीमित करता है।

(2) It emphasises teacher autonomy and school-wide learning improvement. / यह शिक्षकों की स्वायत्तता और विद्यालय-व्यापी अधिगम सुधार पर बल देता है। ✔

(3) It focuses only on administrative tasks and curriculum implementation. / यह केवल प्रशासनिक कार्यों और पाठ्यचर्या कार्यान्वयन पर केंद्रित है।

(4) It ignores the need for student engagement in learning. / यह अधिगम में विद्यार्थियों की संलग्नता की आवश्यकता को नजरअंदाज करता है।

Q.142 A child stacks blocks in patterns and talks with friends while building. Which play types are shown, and how do they work together?

एक बच्चा ब्लॉकों को पैटर्न में जमाता है और निर्माण करते समय मित्रों से बातें करता है। इसमें कौन-से खेल प्रकार दिखाई देते हैं, और वे एक साथ कैसे कार्य करते हैं?

(1) Functional play and parallel play; the child repeats actions while playing near others without interaction / कार्यात्मक खेल और समानांतर खेल; बच्चा दूसरों के पास बिना परस्पर क्रिया के खेलते हुए क्रियाओं को दोहराता है

(2) Constructive play and associative play; the child builds while interacting and coordinating with peers / रचनात्मक खेल और साहचर्य खेल; बच्चा साथियों के साथ परस्पर क्रिया और समन्वय करते हुए निर्माण करता है ✔

(3) Symbolic play and solitary play; the child pretends and plays alone without peer involvement / प्रतीकात्मक खेल और एकाकी खेल; बच्चा साथियों की भागीदारी के बिना अकेले कल्पना करता है और खेलता है

(4) Constructive play and symbolic play; the child builds objects while imagining scenarios independently / रचनात्मक खेल और प्रतीकात्मक खेल; बच्चा स्वतंत्र रूप से परिदृश्यों की कल्पना करते हुए वस्तुओं का निर्माण करता है

Q.143 According to NCF 2005, what is the main goal of mathematics education in school?

NCF 2005 के अनुसार, विद्यालय में गणित शिक्षा का मुख्य लक्ष्य क्या है?

(1) Mathematisation of the child's mind / बच्चों के मन का गणितीयकरण ✔

(2) Memorisation of formulae / सूत्रों का स्मरण

(3) Preparation for engineering / इंजीनियरिंग की तैयारी

(4) Vocational training / व्यावसायिक प्रशिक्षण

Q.144 The role of the teacher in alternative schooling is primarily that of a/an:

वैकल्पिक विद्यालयी शिक्षा में शिक्षक की भूमिका मुख्य रूप से किसकी होती है?

(1) Content expert / विषयवस्तु विशेषज्ञ

(2) Curriculum implementer / पाठ्यचर्या कार्यान्वयनकर्ता

(3) Facilitator / सुगमकर्ता ✔

(4) Authority figure / अधिकारी व्यक्ति

Q.145 What is an effective way to assess the impact of pretend play on language development?

भाषा विकास पर नाटकीय खेल (pretend play) के प्रभाव का आकलन करने का एक प्रभावीतरीका क्या है?

(1) Administer written tests / लिखित परीक्षाएँ आयोजित करना (Administer written tests)

(2) Assign individual reading / व्यक्तिगत पठन कार्य सौंपना (Assign individual reading)

(3) Use silent observation / मौन अवलोकन का उपयोग करना (Use silent observation)

(4) Observe group storytelling / सामूहिक कहानी सुनाने का अवलोकन करना (Observe group storytelling) ✔

Q.146 Choose the correct sentence with proper subject-verb agreement.

उचित कर्ता-क्रिया सामंजस्य (subject-verb agreement) वाले सही वाक्य का चयन करें।

(1) The dog bark loudly at night.

(2) The dog barks loudly at night. ✔

(3) The dog barking loudly at night.

(4) The dog barked loudly at night.

Q.147 Which statement accurately summarises the Indian attitude towards gender roles in political leadership and at home?

कौन-सा कथन, राजनीतिक नेतृत्व और घर में जेंडर भूमिकाओं के प्रति भारतीय अभिवृत्ति को सटीक रूप से सारांशित करता है?

(1) Society rejects women's leadership while supporting equality within households. / समाज महिलाओं के नेतृत्व को अस्वीकार करता है जबकि घरों के भीतर समानता का समर्थन करता है।

(2) Society accepts women as political leaders, but expects traditional domestic roles from them. / समाज महिलाओं को राजनीतिक नेता के रूप में स्वीकार करता है, लेकिन उनसे पारंपरिक घरेलू भूमिकाओं की अपेक्षा रखता है। ✔

(3) Society discourages women's political participation while promoting domestic freedom. / समाज घरेलू स्वतंत्रता को बढ़ावा देते हुए महिलाओं की राजनीतिक भागीदारी को हतोत्साहित करता है।

(4) Society equally supports women's leadership and their participation in domestic responsibilities. / समाज महिलाओं के नेतृत्व और घरेलू जिम्मेदारियों में उनकी भागीदारी का समान रूप से समर्थन करता है।

Q.148 Who developed the concept of classical conditioning?

शास्त्रीय अनुबंधन की अवधारणा (concept of classical conditioning) किसने विकसित कीथी?

(1) Sigmund Freud / सिग्मंड फ्रायड (Sigmund Freud)

(2) B.F. Skinner / बी.एफ. स्किनर (B.F. Skinner)

(3) Ivan Petrovich Pavlov / इवान पेट्रोविच पावलोव (Ivan Petrovich Pavlov) ✓

(4) Jean Piaget / जीन पियाजे (Jean Piaget)

Q.149 Which of the following activities is most helpful for students to understand that units must be consistent while measuring length, area and volume?

निम्नलिखित में से कौन-सी गतिविधि, विद्यार्थियों को यह समझने में सर्वाधिक सहायक होती है कि लंबाई, क्षेत्रफल और आयतन को मापते समय इकाइयों को सुसंगत होना चाहिए?

(1) Estimating objects by visual comparison without using units / इकाइयों का उपयोग किए बिना दृश्य तुलना द्वारा वस्तुओं का आकलन करना

(2) Measuring objects using different non-standard units each time / प्रत्येक बार विभिन्न अनौपचारिक इकाइयों का उपयोग करके वस्तुओं को मापना

(3) Measuring objects using metres, square metres and cubic metres / मीटर, वर्गमीटर और घनमीटर का उपयोग करके वस्तुओं को मापना ✓

(4) Recording measurements of objects but not writing the names of units / वस्तुओं के मापों को रिकॉर्ड करना लेकिन इकाई के नाम न लिखना

Q.150 A healthcare organization is designing a new telemedicine platform to connect specialists from different countries. To ensure precise medical communication and patient safety, what language policy should the developers prioritize, considering English's global role in science and medicine?

एक स्वास्थ्य सेवा संगठन विभिन्न देशों के विशेषज्ञों को जोड़ने के लिए एक नया टेलीमेडिसिन प्लेटफ़ॉर्म तैयार कर रहा है। सटीक चिकित्सीय संचार और रोगी सुरक्षा सुनिश्चित करने के लिए, विज्ञान और चिकित्सा में अंग्रेज़ी की वैश्विक भूमिका को ध्यान में रखते हुए, डेवलपर्स को किस भाषा नीति को प्राथमिकता देनी चाहिए?

(1) Allowing users to select any language for reports and consultations / उपयोगकर्ताओं को रिपोर्ट और परामर्श के लिए कोई भी भाषा चुनने की अनुमति देना

(2) Translating each interaction in real-time for every user / प्रत्येक उपयोगकर्ता के लिए प्रत्येक संवाद का वास्तविक समय में अनुवाद करना

(3) Implementing English as the standard interface and reporting language / अंग्रेज़ी को मानक इंटरफ़ेस और रिपोर्टिंग भाषा के रूप में लागू करना ✓

(4) Using only local languages for each region's interface and reports / प्रत्येक क्षेत्र के इंटरफ़ेस और रिपोर्ट के लिए केवल स्थानीय भाषाओं का उपयोग करना

Q.151 Which of the following is a major impact of TV advertising on society?

निम्नलिखित में से कौन-सा, TV विज्ञापन का समाज पर एक प्रमुख प्रभाव है?

(1) It influences purchase decisions subconsciously / यह क्रय निर्णयों को अचेत रूप से प्रभावित करता है ✓

(2) It encourages critical thinking / यह समीक्षात्मक चिंतन को प्रोत्साहित करता है

(3) It reduces consumerism / यह उपभोक्तावाद को कम करता है

(4) It teaches historical facts / यह ऐतिहासिक तथ्य सिखाता है

Q.152 Which classroom practice supports English as a global language while also respecting local languages?

कौन-सी कक्षा पद्धति स्थानीय भाषाओं का सम्मान करते हुए अंग्रेज़ी को एक वैश्विक भाषा के रूप में समर्थन देती है?

(1) Encouraging bilingual activities and discussions / द्विभाषी गतिविधियों और चर्चाओं को प्रोत्साहित करना ✔

(2) Focusing only on translation exercises daily / प्रतिदिन केवल अनुवाद अभ्यासों पर ध्यान केंद्रित करना

(3) Discouraging use of native language entirely / मातृभाषा के उपयोग को पूरी तरह हतोत्साहित करना

(4) Insisting on only English in all interactions / सभी संवादों में केवल अंग्रेज़ी पर ज़ोर देना

Q.153 In what way does television advertising mainly influence children's behaviour?

टेलीविजन विज्ञापन मुख्यत: बच्चों के व्यवहार को किस प्रकार से प्रभावित करता है?

(1) It improves academic performance through information / यह सूचना के माध्यम से शैक्षणिक प्रदर्शन में सुधार करता है

(2) It shapes consumer preferences and influences purchases. / यह उपभोक्ताओं की प्राथमिकताओं को आकार देता है और खरीद को प्रभावित करता है। ✔

(3) It reduces aggression and violent tendencies / यह आक्रामकता और हिंसक प्रवृत्तियों को कम करता है

(4) It improves attention span and focus skills / यह अवधान विस्तृति और फोकस कौशल में सुधार करता है

Q.154 Which role does the community play in education?

शिक्षा में समुदाय की क्या भूमिका होती है?

(1) Designing examination systems / परीक्षा प्रणालियों का निर्माण करना

(2) Providing support and resources / सहायता और संसाधन प्रदान करना ✔

(3) Managing daily school operations / विद्यालय के दैनिक संचालन का प्रबंधन करना

(4) Conducting classroom teaching / कक्षा में शिक्षण करना

Q.155 Redesigning the curriculum completely afresh challenges the notion that knowledge is _____.

पाठ्यचर्या को पूर्णतः नए सिरे से डिजाइन करना इस धारणा को चुनौती देता है कि ज्ञान _____ होता है।

(1) context-relative / प्रसंग सापेक्ष

(2) fixed and universal / स्थिर और सार्वभौमिक ✔

(3) culturally embedded / सांस्कृतिक रूप से अंतःस्थापित

(4) socially constructed / सामाजिक रूप से निर्मित

Q.156 When both children and adults watch television advertisements, what is the likely shared outcome?

जब बच्चे और वयस्क दोनों टेलीविजन विज्ञापन देखते हैं, तो संभावित साझा परिणाम क्या होता है?

(1) Both may develop increased interest in the advertised products. / दोनों की विज्ञापित उत्पादों में रुचि बढ़ सकती है। ✔

(2) Both are never exposed to advertisements on television. / दोनों टेलीविजन पर विज्ञापन के संपर्क में कभी नहीं आते।

(3) Both consistently avoid the advertised products. / दोनों लगातार विज्ञापित उत्पादों से बचते हैं।

(4) Both always remain unaffected by advertising messages. / दोनों विज्ञापन संदेशों से सदैव अप्रभावित रहते हैं।

Q.157 A facilitator notices that a quiet participant is hesitant to share his ideas.
The facilitator politely asks open-ended questions and provides a supportive environment. Which facilitation skill is being used here?

एक फैसिलिटेटर देखता है कि एक शांत प्रतिभागी अपने विचार साझा करने में हिचकिचा रहा है।
फैसिलिटेटर विनम्रतापूर्वक मुक्तोत्तर प्रश्न (open-ended questions) पूछता है और एक सहायक परिवेश प्रदान करता है। यहाँ किस सुगमता कौशल का उपयोग किया जा रहा है?

(1) Active listening for engagement / संलग्नता हेतु सक्रिय श्रवण ✔
(2) Conversation control / वार्तालाप नियंत्रण
(3) Ignoring non-verbal cues / गैर-मौखिक संकेतों की उपेक्षा
(4) Strict questioning / कड़ी पूछताछ

Q.158 During a peer review session, a student notices the sentence: "Neither the principal nor the teachers is attending the event." Which correction maintains proper subject-verb agreement?

सहपाठी समीक्षा सत्र के दौरान, एक छात्र इस वाक्य पर ध्यान देता है: "Neither the principal nor the teachers is attending the event." कौन-सा सुधार उचित कर्ता-क्रिया सामंजस्य (subject-verb agreement) बनाए रखता है?

(1) Neither the principal nor the teachers are attending the event. ✔
(2) Neither the principal nor the teachers attends the event.
(3) Neither the principal nor the teachers was attending the event.
(4) Neither the principal nor the teachers have attended the event.

Q.159 Read the Assertion (A) and Reason (R) given below and select the correct option on their basis.
Assertion (A): While introducing the concept of volume to young children, it is beneficial to use water and containers of different shapes.
Reason (R): Hands-on activities help children to visualise and compare how much space an object occupies.

नीचे दिए गए अभिकथन (A) और कारण (R) को पढ़िए तथा उनके आधार पर सही विकल्प काचयन कीजिए।
अभिकथन (A): छोटे बच्चों को आयतन की अवधारणा से परिचित कराते समय, जल और विभिन्न आकृतियों के पात्रों का उपयोग करना लाभकारी होता है।
कारण (R): व्यावहारिक गतिविधियों से बच्चों को यह कल्पना करने और तुलना करने में मदद मिलती है कि कोई वस्तु कितनी जगह घेरती है।

(1) A is false, but R is true. / A गलत है, लेकिन R सही है।
(2) A is true, but R is false. / A सही है, लेकिन R गलत है।
(3) Both A and R are true, but R is not the correct explanation of A. / A और R दोनों ही सही हैं, लेकिन R, A की सही व्याख्या नहीं है।
(4) Both A and R are true, and R is the correct explanation of A. / A और R दोनों ही सही हैं, तथा R, A की सही व्याख्या है। ✔

Q.160 A first-year college student, facing pressure to conform to peer norms, often refuses to accept academic challenges. In the socio-cultural context, which concept factor contributes most to the persistence of this defence mechanism?

प्रथम वर्ष का कॉलेज विद्यार्थी, समकक्षी के मानदंडों के अनुरूप ढलने के दबाव का सामना करते हुए, प्राय: शैक्षणिक चुनौतियों को स्वीकार करने से इनकार करता है। सामाजिक-सांस्कृतिक संदर्भ में इस रक्षा युक्ति के बने रहने में कौन-सा संकल्पना कारक (concept factor) सर्वाधिक योगदान देता है?

(1) Parents' academic expectations influencing performance / प्रदर्शन को प्रभावित करने वाली माता-पिता की शैक्षणिक अपेक्षाएँ

(2) Influence of peer approval on the choice of defence mechanism / रक्षा युक्ति चयन पर समकक्षी की स्वीकृति का प्रभाव ✔

(3) Level of individual motivation influencing learning strategies / अधिगम रणनीतियों को प्रभावित करने वाली वैयक्तिक अभिप्रेरण का स्तर

(4) Institutional rules shaping classroom participation / कक्षा की सहभागिता को आकृति देने वाले संस्थागत नियम

Q.161 Which of the following options most accurately describes the primary purpose of unit planning in the pedagogy of English language lesson development?

अंग्रेजी भाषा पाठ विकास की शिक्षण पद्धति में इकाई नियोजन के प्राथमिक उद्देश्य का सबसे सटीक वर्णन निम्नलिखित में से कौन-सा विकल्प करता है?

(1) Evaluating students only after the completion of each lesson / प्रत्येक पाठ की समाप्ति के बाद ही विद्यार्थियों का मूल्यांकन करना

(2) Focusing exclusively on grammar instruction / विशेष रूप से व्याकरण अनुदेशन पर ध्यान केंद्रित करना

(3) Organising lessons for shared objectives / साझा उद्देश्यों के लिए पाठों को व्यवस्थित करना ✔

(4) Selecting random activities to increase participation / सहभागिता बढ़ाने के लिए यादृच्छिक गतिविधियों का चयन करना

Q.162 Which of the following is a key characteristic of a transformational school leader?

निम्नलिखित में से कौन-सी, विद्यालय के परिवर्तनकारी नेता की प्रमुख विशेषता है?

(1) Ability to limit teachers' participation in decision-making / निर्णयन में शिक्षकों की भागीदारी को सीमित करने की क्षमता

(2) Ability to focus only on individual achievements / केवल वैयक्तिक उपलब्धियों पर फोकस करने की क्षमता

(3) Ability to inspire and empower others to share a vision / दृष्टिकोण साझा करने के लिए दूसरों को प्रेरित और सशक्त करने की क्षमता ✔

(4) Ability to maintain existing work practices without any change / बिना किसी परिवर्तन के मौजूदा कार्य-पद्धतियों को बनाए रखने की क्षमता

Q.163 Which of the following best describes a unit plan in the context of lesson planning for English language teaching?

अंग्रेज़ी भाषा शिक्षण हेतु पाठ योजना के संदर्भ में निम्नलिखित में से कौन-सा इकाई योजना का सबसे अच्छा वर्णन करता है?

(1) A student attendance sheet / छात्र उपस्थिति पत्रक

(2) A list of classroom materials / कक्षा सामग्री की एक सूची

(3) A structured outline of related lessons / संबंधित पाठों की एक संरचित रूपरेखा ✔

(4) A single day's lesson notes / एक दिन के पाठ के नोट्स

Q.164 What does the scope of social studies mainly include?

सामाजिक अध्ययन के दायरे में मुख्यत: क्या शामिल होता है?

(1) Studying history, geography, civics, economics and culture / इतिहास, भूगोल, नागरिक शास्त्र, अर्थशास्त्र, संस्कृति का अध्ययन करना ✔

(2) Learning concepts from mathematics and science subjects / गणित और विज्ञान विषयों से अवधारणाओं का अधिगम करना

(3) Teaching only selected political events / केवल चयनित राजनीतिक घटनाओं को पढ़ाना

(4) Focusing mainly on memorising dates and names / मुख्यत: तिथियों और नामों को याद रखने पर ध्यान केंद्रित करना

Q.165 A teacher prepares a lesson that involves scientific inquiry, interlinks topics and suits all abilities. Which teaching method is being used in this lesson?

एक शिक्षक वैज्ञानिक जांच को शामिल करते हुए, प्रकरणों को आपस में जोड़ते हुए और सभी क्षमताओं के अनुरूप एक पाठ तैयार करता है। इस पाठ में कौन-सी शिक्षण विधि का प्रयोग किया जा रहा है?

(1) Only conceptual process / केवल अवधारणात्मक प्रक्रम

(2) Traditional lecture method / पारंपरिक व्याख्यान विधि

(3) Rote memorisation / रटन कंठस्थीकरण

(4) Integrated and inclusive approach / एकीकृत और समावेशी उपागम ✔

Q.166 Which of the following options is an example of low-cost, no-cost material that can be used for teaching Environmental Studies?

निम्नलिखित में से कौन-सा विकल्प कम लागत, बिना लागत सामग्री का उदाहरण है, जिसका उपयोग पर्यावरण अध्ययन शिक्षण के लिए किया जा सकता है?

(1) Colourful textbook / रंगीन पाठ्यपुस्तक

(2) Leaves collected from the school ground / विद्यालय के मैदान से एकत्रित की गई पत्तियां ✔

(3) Laboratory glassware / प्रयोगशाला के कांच के बर्तन

(4) Digital projector / डिजिटल प्रोजेक्टर

Q.167 What is unit planning in English language pedagogy?

अंग्रेज़ी भाषा शिक्षाशास्त्र में इकाई योजना क्या है?

(1) Assigning homework / गृहकार्य देना

(2) Selecting textbooks / पाठ्यपुस्तकों का चयन करना

(3) Writing daily reflections / दैनिक चिंतन लिखना

(4) Theme based lessons / विषय-आधारित पाठ ✔

Q.168 Which approach best enables students to critically evaluate contemporary social issues through Social Studies textbooks?

सामाजिक अध्ययन की पाठ्यपुस्तकों के माध्यम से छात्रों को समकालीन सामाजिक मुद्दों का आलोचनात्मक मूल्यांकन करने में कौन-सा दृष्टिकोण सबसे अधिक सक्षम बनाता है?

(1) Thematic memorization / विषयगत रटना

(2) Listing textbook facts / पाठ्यपुस्तक के तथ्यों को सूचीबद्ध करना

(3) Case studies and discussion / केस स्टडी और चर्चा ✔

(4) Isolating textbook chapters / पाठ्यपुस्तक के अध्यायों को अलग-थलग करना

Q.169 Micro-teaching mainly focuses on _____.

सूक्ष्म शिक्षण मुख्यत: _____ पर केंद्रित होता है।

(1) memorising textbook content / पाठ्यपुस्तक की विषयवस्तु का स्मरण करने

(2) **practising specific teaching skills in a controlled, small group / एक नियंत्रित, लघु समूह में विशिष्ट शिक्षण कौशल का अभ्यास करने ✔**

(3) evaluating school infrastructure / स्कूल की अवसंरचना का मूल्यांकन करने

(4) teaching a complete lesson to a large class / एक बड़ी कक्षा को पूर्ण पाठ पढ़ाने

Q.170 Which instructional component is strengthened when a low-exposure primary teacher supplements lessons with structured online computer-lab activities?

जब कम अनुभव वाला कोई प्राथमिक शिक्षक संरचित ऑनलाइन कंप्यूटर-लैब गतिविधियों से पाठों को पूरक बनाता है, तो कौन-सा अनुदेशात्मक घटक सुदृढ़ होता है?

(1) **Classroom-based instruction / कक्षा-आधारित अनुदेशन ✔**

(2) Teacher's grammar knowledge / शिक्षक का व्याकरण ज्ञान

(3) Course book grading / पाठ्यपुस्तक ग्रेडिंग

(4) Standardized test scores / मानकीकृत परीक्षा अंक

Q.171 Which of the following best explains the importance of analysing social studies textbooks?

निम्नलिखित में से कौन-सा, सामाजिक अध्ययन की पाठ्यपुस्तकों के विश्लेषण के महत्व की सर्वोत्तम व्याख्या करता है?

(1) It allows students to skip learning activities. / यह विद्यार्थियों को अधिगम गतिविधियों को छोड़ने की अनुमति देता है।

(2) It makes books lengthy and difficult to read. / यह पुस्तकों को लंबा और पढ़ने में कठिन बना देता है।

(3) It helps teachers avoid using textbooks. / यह शिक्षकों की पाठ्यपुस्तकों का उपयोग करने से बचने में सहायता करता है।

(4) **It ensures accuracy and diversity. / यह सटीकता और विविधता सुनिश्चित करता है। ✔**

Q.172 The Grammar Translation Method (GTM) was originally based on _____.

व्याकरण अनुवाद पद्धति (GTM) मूलतः _____ पर आधारित थी।

(1) task-based learning with active participation / सक्रिय सहभागिता के साथ कार्य-आधारित अधिगम

(2) modern communication theories / आधुनिक संचार सिद्धांतों

(3) practice of oral language using drills / अभ्यास का उपयोग करके मौखिक भाषा के अभ्यास

(4) **classical language teaching of Latin and Greek / लैटिन और ग्रीक का शास्त्रीय भाषा शिक्षण ✔**

Q.173 A teacher wants to prepare a project linking the themes 'Shelter' and 'Water' for her primary EVS class. Which approach best aligns with the curriculum goals?

एक शिक्षक अपनी प्राथमिक EVS कक्षा के लिए 'आश्रय (Shelter)' और 'जल (Water)' विषयोंको जोड़ने वाली परियोजना तैयार करना चाहता है। कौन-सा उपागम पाठ्यचर्या के लक्ष्यों के साथ सर्वोत्तम रूप से संरेखित है?

(1) Comparing local and traditional shelters / स्थानीय और पारंपरिक आश्रयों की तुलना करना

(2) Studying the materials and construction of shelters / आश्रय की सामग्री और निर्माण का अध्ययन करना

(3) **Studying the effect of water on shelters / आश्रयों पर जल के प्रभाव का अध्ययन करना ✔**

(4) Exploring the use of water in homes / घरों में जल के उपयोग का अन्वेषण करना

Q.174 Which of the following is a major content area in the Environmental Studies curriculum at the primary level?

प्राथमिक स्तर के पर्यावरण अध्ययन पाठ्यचर्या में निम्नलिखित में से कौन-सा एक प्रमुख विषय-वस्तु क्षेत्र है?

(1) Studying only historical events unrelated to the environment or nature / केवल पर्यावरण या प्रकृति से असंबंधित ऐतिहासिक घटनाओं का अध्ययन करना

(2) Memorising definitions and terms without observing the natural world / प्राकृतिक जगत का प्रेक्षण किए बिना परिभाषाओं और शब्दों को स्मरण करना

(3) Focusing only on advanced scientific theories and laboratory experiments / केवल उन्नत वैज्ञानिक सिद्धांतों और प्रयोगशाला प्रयोगों पर फोकस करना

(4) Understanding plants, animals, water, air and the surrounding environment / पादप, पशुओं, जल, वायु और आसपास के पर्यावरण को समझना ✔

Q.175 A State Education Board achieved 100% student enrolment (goal attainment). However, the budget report revealed a four-fold increase in cost per student (input ratio). How has the Board's performance been assessed?

राज्य शिक्षा बोर्ड ने 100% विद्यार्थी नामांकन (लक्ष्य प्राप्ति) हासिल किया। हालांकि, बजट रिपोर्ट में प्रति विद्यार्थी लागत में चार गुना वृद्धि (इनपुट अनुपात) का खुलासा हुआ। बोर्ड के कार्य-निष्पादन का आकलन किस प्रकार से किया गया है?

(1) High effectiveness, low efficiency / उच्च प्रभावशीलता, निम्न दक्षता ✔

(2) Low effectiveness, high efficiency / निम्न प्रभावशीलता, उच्च दक्षता

(3) High profitability, low goal attainment / उच्च लाभप्रदता, निम्न लक्ष्य प्राप्ति

(4) High efficiency, high wastage of resources / उच्च दक्षता, संसाधन का उच्च अपव्यय

Q.176 A school leadership team wants to evaluate the success of a new initiative to foster a positive, inclusive culture. Which strategy best ensures the measurement is valid and meaningful?

एक विद्यालय नेतृत्व दल सकारात्मक, समावेशी संस्कृति को बढ़ावा देने वाली एक नई पहल की सफलता का मूल्यांकन करना चाहता है। कौन-सी रणनीति यह सबसे अच्छी तरह सुनिश्चित करती है कि मापन वैध और सार्थक हो?

(1) Collecting attendance records / उपस्थिति रिकॉर्ड एकत्र करना

(2) Reviewing textbook purchases / पाठ्यपुस्तक खरीद की समीक्षा करना

(3) Surveying only students / केवल छात्रों का सर्वेक्षण करना

(4) Observation, discussion & performance / अवलोकन, चर्चा और प्रदर्शन ✔

Q.177 A teacher wants to use open-ended problems in evaluation to promote higher-order thinking. Which of the following best illustrates an effective use of open-ended questions for this purpose?

एक शिक्षक उच्च-स्तरीय चिंतन को बढ़ावा देने के लिए मूल्यांकन में मुक्त-उत्तरीय समस्याओं का उपयोग करना चाहता है। निम्नलिखित में से कौन-सा इस उद्देश्य के लिए मुक्त-उत्तरीय प्रश्नों के प्रभावी उपयोग को सबसे अच्छी तरह दर्शाता है?

(1) Instructing students to copy answers directly from textbooks / छात्रों को पाठ्यपुस्तकों से सीधे उत्तर नकल करने का निर्देश देना

(2) Asking students to recall a fixed definition from memory / छात्रों से स्मृति से एक निश्चित परिभाषा याद करके बताने को कहना ✔

(3) Asking students to propose solutions and justify their choices / छात्रों से समाधान प्रस्तावित करने और अपने विकल्पों का औचित्य बताने को कहना

(4) Having students select one correct option from a list / छात्रों से एक सूची में से एक सही विकल्प चुनवाना

Q.178 A key pedagogical advantage of using open-ended questions is that they:

मुक्त-उत्तरीय प्रश्नों के उपयोग का एक प्रमुख शैक्षणिक लाभ यह है कि वे:

(1) Promote higher-order skills / उच्च-स्तरीय कौशलों को बढ़ावा देते हैं ✔

(2) Reduce instructional planning time / अनुदेशात्मक योजना का समय कम करते हैं

(3) Simplify scoring procedures / अंकन प्रक्रियाओं को सरल बनाते हैं

(4) Ensure identical learner responses / शिक्षार्थियों की एक समान प्रतिक्रियाएँ सुनिश्चित करते हैं

Q.179 A secondary school teacher wants to help students understand the importance of economic activities in society. She decides to prepare an interdisciplinary project that links economic systems with cultural diversity and political processes. Which approach best reflects the scope of social studies described in this context?

एक माध्यमिक विद्यालय की शिक्षिका विद्यार्थियों को समाज में आर्थिक गतिविधियों के महत्व को समझाने में मदद करना चाहती है। वह एक ऐसी अंतर्विषयक परियोजना तैयार करने का निर्णय लेती है जो आर्थिक प्रणालियों को सांस्कृतिक विविधता और राजनीतिक प्रक्रियाओं से जोड़ती है। कौन-सा उपागम इस संदर्भ में वर्णित सामाजिक अध्ययन के दायरे को सर्वोत्तम रूप से दर्शाता है?

(1) Integrating multiple subjects to promote civic participation / नागरिक भागीदारी को बढ़ावा देने के लिए कई विषयों को एकीकृत करना ✔

(2) Teaching economic activities in isolation from other areas / अन्य क्षेत्रों से अलग आर्थिक गतिविधियों को पढ़ाना

(3) Emphasising memorisation of economic definitions / आर्थिक परिभाषाओं को याद रखने पर जोर देना

(4) Focusing only on economic theories for research / शोध के लिए केवल आर्थिक सिद्धांतों पर ध्यान केंद्रित करना

Q.180 Which of the following best describes an open-ended question in educational evaluation?

निम्नलिखित में से कौन-सा शैक्षिक मूल्यांकन में मुक्त-उत्तरीय प्रश्न का सबसे अच्छा वर्णन करता है?

(1) A question that has only one correct word as an answer / ऐसा प्रश्न जिसके उत्तर में केवल एक ही सही शब्द हो

(2) A question that can only be answered with a number / ऐसा प्रश्न जिसका उत्तर केवल एक संख्या से दिया जा सके

(3) A question that requires a yes or no answer / ऐसा प्रश्न जिसके लिए हाँ या नहीं में उत्तर अपेक्षित हो

(4) A question that allows for multiple possible responses and explanations / ऐसा प्रश्न जो अनेक संभावित प्रतिक्रियाओं और व्याख्याओं की अनुमति देता है ✔

Q.181 Gender-balanced visuals in textbooks are important because they help in _____.

पाठ्यपुस्तकों में जेंडर-संतुलित दृश्य महत्वपूर्ण हैं, क्योंकि वे _____ सहायक होते हैं।

(1) simplifying lesson objectives / पाठ उद्देश्यों को सरल बनाने में

(2) reducing reading difficulty / पठन कठिनाई को कम करने में

(3) challenging stereotypical roles / रूढ़िवादी भूमिकाओं को चुनौती देने में ✔

(4) broadening the syllabus / पाठ्यविवरण को व्यापक बनाने में

Q.182 Linguistic diversity in Indian classrooms can be effectively addressed by:

भारतीय कक्षाओं में भाषाई विविधता का किसके द्वारा प्रभावी रूप से समाधान किया जा सकता है?

(1) limiting classroom discussion and interaction / कक्षागत परिचर्चा और अंतःक्रिया को सीमित करके

(2) using multilingual strategies / बहुभाषी रणनीतियों का उपयोग करके ✔

(3) discouraging the use of mother tongues / मातृ-भाषाओं के उपयोग को हतोत्साहित करके

(4) strictly enforcing a single language for instruction / अनुदेश के लिए एकल भाषा को सख्ती से लागू करके

Q.183 Which of the following statements best describes gender equality in schools?

निम्नलिखित में से कौन-सा कथन विद्यालयों में जेंडर समानता (gender equality) का सर्वोत्तम वर्णन करता है?

(1) Having separate classes for boys and girls / लड़कों और लड़कियों के लिए अलग-अलग कक्षाएं होना

(2) Allowing only boys to participate in sports / खेलों में केवल लड़कों को भाग लेने की अनुमति देना

(3) Giving higher academic marks only to girls / केवल लड़कियों को उच्च शैक्षणिक अंक देना

(4) Providing equal learning opportunities to all genders / सभी जेंडर को समान अधिगम के अवसर प्रदान करना ✔

Q.184 A research analyst needs a four-digit prime number for a new encryption algorithm. Which of the following numbers is most suitable?

एक शोध विश्लेषक को एक नए एन्क्रिप्शन एल्गोरिदम के लिए चार अंकों की एक अभाज्य संख्या की आवश्यकता है। निम्नलिखित में से कौन-सी संख्या सबसे उपयुक्त है?

(1) 2382

(2) 2371 ✔

(3) 2462

(4) 2448

Q.185 What is the standard form of a rational number p/q?

परिमेय संख्या p/q का मानक रूप क्या है?

(1) q is positive and p and q are co-prime / q धनात्मक है और p और q सह-अभाज्य हैं ✔

(2) Both p and q are positive integers / p और q दोनों धनात्मक पूर्णांक हैं

(3) p and q are non-zero numbers / p और q शून्येत्तर संख्याएं हैं

(4) p is greater than q in value / p, मान में q से बड़ा है

Q.186 Which of the following accurately describes the activity-based approach in teaching mathematics?

निम्नलिखित में से कौन-सा, गणित शिक्षण में गतिविधि-आधारित उपागम का सटीक वर्णन करता है?

(1) Providing only lectures and demonstrations to the whole class / पूरी कक्षा को केवल व्याख्यान और निदर्शन प्रदान करना

(2) Asking students to memorise formulae and rules without practice / विद्यार्थियों को बिना अभ्यास के सूत्र और नियमों को याद रखने के लिए कहना

(3) Involving students in hands-on activities to explore concepts / अवधारणाओं का पता लगाने के लिए विद्यार्थियों को व्यावहारिक गतिविधियों में शामिल करना ✔

(4) Giving students notes to read silently without discussion / विद्यार्थियों को बिना चर्चा के चुपचाप पढ़ने के लिए नोट्स देना

Q.187 During a unit on scientific inquiry, students make repeated observations about plants bending towards light and suggest that all plants exhibit this behaviour. Which basic process of scientific reasoning are they using?

वैज्ञानिक जांच की एक इकाई के दौरान, विद्यार्थी पादपों के प्रकाश की ओर झुकने के बारे में पुनरावृत्त अवलोकन करते हैं और यह सुझाव देते हैं कि सभी पादप इस व्यवहार को प्रदर्शित करते हैं। वे वैज्ञानिक तर्क की कौन-सी मूल प्रक्रिया का उपयोग कर रहे हैं?

(1) Statistical reasoning / सांख्यिकीय तर्क

(2) Abductive reasoning / प्रत्युत्पादक तर्क

(3) Deductive reasoning / निगमनात्मक तर्क

(4) Inductive reasoning / आगमनात्मक तर्क ✔

Q.188 Which of the following is an example of a cultural practice that reflects patriarchal beliefs?

निम्नलिखित में से कौन-सा, सांस्कृतिक प्रथा का एक उदाहरण है जो पितृसत्तात्मक मान्यताओं को दर्शाता है?

(1) Architecture / वास्तुकला

(2) **Attire / वेशभूषा ✔**

(3) Ecology / पारिस्थितिकी

(4) Technology / तकनीक

Q.189 When aiming for formative assessment that encourages student autonomy and ongoing improvement, which evaluation method is most effective?

जब उद्देश्य ऐसा रचनात्मक आकलन हो जो छात्र स्वायत्तता और निरंतर सुधार को प्रोत्साहित करे, तो कौन-सी मूल्यांकन विधि सबसे प्रभावी है?

(1) Peer grading with rubric-based scoring / रूब्रिक-आधारित अंकन के साथ सहपाठी ग्रेडिंग

(2) **Self-assessment checklists with guided criteria / निर्देशित मानदंडों के साथ स्व-आकलन जाँच-सूचियाँ ✔**

(3) Teacher-only written feedback after tasks / कार्यों के बाद केवल शिक्षक द्वारा लिखित प्रतिपुष्टि

(4) End-of-term cumulative examination / सत्रांत संचयी परीक्षा

Q.190 Which of the following is NOT an importance of social science?

निम्नलिखित में से कौन-सा सामाजिक विज्ञान का एक महत्व नहीं है?

(1) **Proving scientific experiments in social contexts / सामाजिक संदर्भों में वैज्ञानिक प्रयोगों को सिद्ध करना ✔**

(2) Providing just solutions for marginalised groups / उपेक्षित समूहों के लिए न्यायसंगत समाधान प्रदान करना

(3) Being interdisciplinary in its conceptual nature / अपनी संकल्पनात्मक प्रकृति में अंतर्विषयी होना

(4) Promoting the understanding of human behaviour / मानव व्यवहार की समझ को बढ़ावा देना

Q.191 A school principal wants to improve students' scientific temper and performance in science subjects while working under budget constraints and limited storage space. Which feature of science kits most effectively addresses these challenges?

एक विद्यालय प्रधानाचार्य बजट की सीमाओं और सीमित भंडारण स्थान के साथ कार्य करते हुए छात्रों के वैज्ञानिक दृष्टिकोण और विज्ञान विषयों में प्रदर्शन में सुधार करना चाहते हैं। विज्ञान किट की कौन-सी विशेषता इन चुनौतियों का सबसे प्रभावी ढंग से समाधान करती है?

(1) Limiting activities to teacher demonstrations only / गतिविधियों को केवल शिक्षक प्रदर्शनों तक सीमित रखना

(2) **Portability and use of low-cost, indigenous materials / सुवाह्यता और कम लागत वाली, स्वदेशी सामग्रियों का उपयोग ✔**

(3) Requirement of advanced laboratory infrastructure / उन्नत प्रयोगशाला अवसंरचना की आवश्यकता

(4) Dependence on imported apparatus / आयातित उपकरणों पर निर्भरता

Q.192 Which of the following accurately describes economic exclusion?

निम्नलिखित में से कौन-सा, आर्थिक बहिष्करण (economic exclusion) का सटीक वर्णन करताहै?

(1) **Exclusion based on the distribution of access to resources, wealth and markets / संसाधनों, धन और बाजारों तक पहुंच के वितरण के आधार पर बहिष्करण ✔**

(2) Exclusion resulting from lack of citizenship status and deprivation of basic rights / नागरिकता की स्थिति का अभाव और मूल अधिकारों से वंचित होने के परिणामस्वरूप बहिष्करण

(3) Exclusion due to lack of political rights, freedom of expression and political participation / राजनीतिक अधिकारों, अभिव्यक्ति की स्वतंत्रता और राजनीतिक भागीदारी की कमी के कारण बहिष्करण

(4) Exclusion due to disconnection from political processes and inequality before law / राजनीतिक प्रक्रियाओं से विसंबंधन और कानून के समक्ष असमानता के कारण बहिष्करण

Q.193 How do the processes in the classroom promote gender in school?

कक्षा में होने वाली प्रक्रियाएँ विद्यालय में जेंडर को किस प्रकार बढ़ावा देती हैं?

(1) Boys handling only arts and crafts / लड़कों का केवल कला और शिल्प का प्रहस्तन करना

(2) Mixed-gender teams for all projects / सभी परियोजनाओं के लिए मिश्रित जेंडर वाली टीम

(3) **Separate seating arrangements for boys and girls / लड़कों और लड़कियों के लिए बैठने की पृथक व्यवस्था ✔**

(4) Girls leading science experiments / लड़कियों का विज्ञान प्रयोगों में अग्रणी रहना

Q.194 Which of the following best describes the nature of science as a discipline?

निम्नलिखित में से कौन-सा, विज्ञान की प्रकृति को विद्याशाखा के रूप में सर्वोत्तम तरीके से वर्णित करता है?

(1) It is based only on personal opinions and beliefs. / यह केवल व्यक्तिगत अभिमत और विश्वासों पर आधारित है।

(2) **It depends on observation of and experimentation with nature. / यह प्रकृति के प्रेक्षण और प्रयोगीकरण पर निर्भर करता है। ✔**

(3) It cannot be tested or scientifically verified. / इसका परीक्षण या वैज्ञानिक रूप से सत्यापन नहीं किया जा सकता है।

(4) It ignores facts and focuses only on imagination. / यह तथ्यों की उपेक्षा करता है और केवल कल्पना पर फोकस करता है।

Q.195 A teacher shows a short video of a conversation to demonstrate correct pronunciation and body language. This teaching aid can be best classified as?

एक शिक्षक सही उच्चारण और शारीरिक भाषा प्रदर्शित करने के लिए एक वार्तालाप का छोटा वीडियो दिखाता है। इस शिक्षण सहायक सामग्री को सबसे उपयुक्त रूप से किस रूप में वर्गीकृत किया जा सकता है?

(1) Visual aid / दृश्य सहायक सामग्री

(2) Audio aid / श्रव्य सहायक सामग्री

(3) Textual aid / पाठ्य सहायक सामग्री

(4) **Audio-visual aid / दृश्य-श्रव्य सहायक सामग्री ✔**

Q.196 Which area of development is demonstrated when a learner consistently displays punctuality, honesty, and responsibility in school?

जब कोई शिक्षार्थी विद्यालय में लगातार समय की पाबंदी, ईमानदारी और ज़िम्मेदारी प्रदर्शित करता है, तो विकास का कौन-सा क्षेत्र प्रदर्शित होता है?

(1) Social domain / सामाजिक क्षेत्र

(2) Psychomotor domain / मनोप्रेरक क्षेत्र

(3) **Affective domain / भावात्मक क्षेत्र ✔**

(4) Cognitive domain / संज्ञानात्मक क्षेत्र

Q.197 An eco-club's kitchen garden is facing difficulties in operation due to shortage of water. Which science club activity would exemplify collaboration, holistic appreciation of science and problem-solving?

एक इको-क्लब का किचन गार्डन, जल की कमी के कारण संचालन में कठिनाइयों का सामना कर रहा है। कौन-सा विज्ञान क्लब सहयोग, समग्र विज्ञान प्रशंसा और समस्या-समाधान का उदाहरण होगा?

(1) **Designing a water harvesting system with club members / क्लब के सदस्यों के साथ जल संचयन प्रणाली तैयार करना ✔**

(2) Using artificial plants to understand by example / उदाहरण द्वारा समझने के लिए कृत्रिम पौधों का उपयोग करना

(3) Requesting additional funds from the management / प्रबंधन से अतिरिक्त निधि का अनुरोध करना

(4) Scheduling more garden visits without any change / बिना किसी परिवर्तन के अधिक उद्यान वीक्षाओं का समय-निर्धारण करना

Q.198 Which of the following options correctly expresses 0.25 as a fraction?
निम्नलिखित में से कौन-सा विकल्प, 0.25 को भिन्न के रूप में सही तरह से व्यक्त करता है?

(1) 3/8
(2) 2/5
(3) **1/4 ✔**
(4) 1/2

Q.199 Which concept involves respecting differences among students?
किस अवधारणा में विद्यार्थियों के बीच मतभेदों का सम्मान करना शामिल है?

(1) Competition / प्रतिस्पर्धा
(2) **Diversity / विविधता ✔**
(3) Homogeneity / समांगता
(4) Discipline / अनुशासन

Q.200 A teacher observed that boys often dominate science discussions in classroom interactions. Which instructional adjustment can best promote equal participation?
एक शिक्षक ने देखा कि कक्षागत अन्योन्यक्रियाओं में प्रायः विज्ञान की चर्चाओं में लड़कों का प्रभुत्व रहता है। कौन-सा अनुदेशनात्मक समायोजन, समान भागीदारी को सर्वोत्तम रूप से बढ़ावा दे सकता है?

(1) Dividing students into groups according to their ability / विद्यार्थियों को उनकी योग्यता के अनुसार समूहों में बाँटना
(2) Appointing boys to lead science discussions in the class / लड़कों को कक्षा में विज्ञान की चर्चाओं का नेतृत्व करने के लिए नियुक्त करना
(3) **Creating turn-taking protocols during group discussions / समूह चर्चाओं के दौरान बारी-बारी से बोलने के प्रोटोकॉल बनाना ✔**
(4) Allowing students to make spontaneous contributions in the class / कक्षा में विद्यार्थियों को स्वतःस्फूर्त योगदान देने की अनुमति देना

Answer Key / उत्तर कुंजी

1 4	**2** 1	**3** 1	**4** 3	**5** 1	**6** 3	**7** 2	**8** 3	**9** 1	**10** 2	**11** 2	**12** 2	**13** 4	**14** 1	**15** 2
16 2	**17** 2	**18** 2	**19** 1	**20** 1	**21** 4	**22** 4	**23** 3	**24** 4	**25** 2	**26** 2	**27** 3	**28** 3	**29** 1	**30** 3
31 3	**32** 1	**33** 2	**34** 4	**35** 3	**36** 2	**37** 2	**38** 4	**39** 2	**40** 2	**41** 3	**42** 3	**43** 1	**44** 4	**45** 2
46 2	**47** 2	**48** 4	**49** 4	**50** 4	**51** 3	**52** 2	**53** 2	**54** 3	**55** 2	**56** 2	**57** 1	**58** 4	**59** 4	**60** 1
61 2	**62** 1	**63** 1	**64** 1	**65** 2	**66** 3	**67** 4	**68** 2	**69** 3	**70** 2	**71** 4	**72** 1	**73** 3	**74** 4	**75** 1
76 2	**77** 2	**78** 3	**79** 4	**80** 3	**81** 2	**82** 2	**83** 3	**84** 4	**85** 3	**86** 2	**87** 4	**88** 3	**89** 3	**90** 4
91 3	**92** 1	**93** 1	**94** 3	**95** 3	**96** 1	**97** 2	**98** 2	**99** 2	**100** 1	**101** 2	**102** 1	**103** 1	**104** 3	**105** 3
106 2	**107** 2	**108** 4	**109** 2	**110** 4	**111** 4	**112** 1	**113** 4	**114** 2	**115** 3	**116** 1	**117** 2	**118** 1	**119** 2	**120** 2
121 1	**122** 4	**123** 4	**124** 1	**125** 3	**126** 3	**127** 2	**128** 2	**129** 4	**130** 1	**131** 4	**132** 1	**133** 1	**134** 2	**135** 2

136 2	**137** 2	**138** 4	**139** 1	**140** 4	**141** 2	**142** 2	**143** 1	**144** 3	**145** 4	**146** 2	**147** 2	**148** 3	**149** 3	**150** 3
151 1	**152** 1	**153** 2	**154** 2	**155** 2	**156** 1	**157** 1	**158** 1	**159** 4	**160** 2	**161** 3	**162** 3	**163** 3	**164** 1	**165** 4
166 2	**167** 4	**168** 3	**169** 2	**170** 1	**171** 4	**172** 4	**173** 3	**174** 4	**175** 1	**176** 4	**177** 2	**178** 1	**179** 1	**180** 4
181 3	**182** 2	**183** 4	**184** 2	**185** 1	**186** 3	**187** 4	**188** 2	**189** 2	**190** 1	**191** 2	**192** 1	**193** 3	**194** 2	**195** 4
196 3	**197** 1	**198** 3	**199** 2	**200** 3										

QuickSarkari

GOVT. OF NCT OF DELHI
Delhi Subordinate Services Selection Board
FC-18, Institutional Area, Karkardooma, Delhi – 110092.
www.dsssb.delhigovt.nic.in

Participant ID	[redacted]
Participant Name	[redacted]
Test Center Name	Noida Sector 64
Test Date	10/04/2026
Test Time	1:00 PM - 3:00 PM
Subject	Assistant Teacher Primary

Section : **General Intelligence and Reasoning Ability**

Q.1 नीचे संख्याओं के दो समुच्चय दिए गए हैं। संख्याओं के प्रत्येक समुच्चय में, पहली संख्या पर निश्चित गणितीय संक्रियाएं करके दूसरी संख्या प्राप्त की गई है। इसी प्रकार, दूसरी संख्या पर निश्चित गणितीय संक्रियाएं करके तीसरी संख्या प्राप्त की गई है, और इसी प्रकार आगे की भी संक्रियाएं प्राप्त की गई है। दिए गए विकल्पों में से कौन-सा विकल्प, उन्हीं संक्रियाओं का अनुसरण करता है, जो दिए गए समुच्चयों में अनुसरण की गई है?
(नोट: संख्याओं को उनके घटक अंकों में तोड़े बिना, पूर्ण संख्याओं पर संक्रियाएं की जानी चाहिए। उदाहरण के लिए 13 लीजिए, 13 पर संक्रियाएं , जैसे कि 13 में जोड़ना/घटाना/गुणा करना आदि, की जा सकती है। 13 को 1 और 3 में तोड़ना तथा फिर 1 और 3 पर गणितीय संक्रियाएं करने की अनुमति नहीं है।)
38 - 266 - 532 - 544
13 - 91 - 182 - 194

Ans
✗ 1. 25 - 155 - 465 - 478
✗ 2. 22 - 154 - 770 - 782
✗ 3. 12 - 96 - 288 - 300
✓ 4. 15 - 105 - 210 - 222

Question ID : **4410095286 55**
Option 1 ID : **4410092070026**
Option 2 ID : **4410092070027**
Option 3 ID : **4410092070025**
Option 4 ID : **4410092070024**

QuickSarkari.com | WhatsApp Channel | Telegram: t.me/quick_sarkari

Q.2 एक निश्चित कूट भाषा में, 'FLAT' को '4625' के रूप में कूटबद्ध किया जाता है और 'CALF' को '2674' के रूप में कूटबद्ध किया जाता है। दी गई कूट भाषा में 'C' के लिए कूट क्या है?

Ans
✔ 1. 7
✘ 2. 4
✘ 3. 2
✘ 4. 6

Question ID : **4410091614531**
Option 1 ID : **4410096376937**
Option 2 ID : **4410096376939**
Option 3 ID : **4410096376938**
Option 4 ID : **4410096376940**

Q.3 यदि संख्या 2561473 के प्रत्येक विषम अंक में 2 जोड़ा जाता है तथा प्रत्येक सम अंक में से 1 घटाया जाता है, तो इस प्रकार बनी नई संख्या में कितने अंक एक से अधिक बार आएंगे?

Ans
✔ 1. दो
✘ 2. एक
✘ 3. एक भी नहीं
✘ 4. तीन

Question ID : **441009216072**
Option 1 ID : **441009848329**
Option 2 ID : **441009848328**
Option 3 ID : **441009848327**
Option 4 ID : **441009848330**

Q.4 उत्तर की ओर अभिमुख 26 विद्यार्थियों की एक पंक्ति में, मनीष बाएं छोर से 15वें स्थान पर है। यदि दिव्या, मनीष के दाएं छठे स्थान पर है, तो पंक्ति के दाएं छोर से दिव्या का स्थान कौन-सा है?

Ans
✘ 1. तीसरा
✘ 2. सातवां
✔ 3. छठा
✘ 4. चौथा

Question ID : **4410091619661**
Option 1 ID : **4410096397500**
Option 2 ID : **4410096397503**
Option 3 ID : **4410096397502**
Option 4 ID : **4410096397501**

Quick Sarkari

Q.5 एक निश्चित तरीके से HH 12 का संबंध FE -4 से है। इसी प्रकार, EI 13 का संबंध CF -3 से है। समान तर्क का अनुसरण करते हुए, MP 20 का संबंध निम्नलिखित में से किससे है?

Ans
✔ 1. KM 4
✘ 2. LM 4
✘ 3. LL 6
✘ 4. KL 6

Question ID : **441009778962**
Option 1 ID : **4410093069852**
Option 2 ID : **4410093069854**
Option 3 ID : **4410093069853**
Option 4 ID : **4410093069851**

Quick Sarkari

Q.6 यदि जल स्रोत को निम्नानुसार M-N के अनुदिश रखा जाए, तो निम्न में से कौन-सा विकल्प दी गई आकृति का जल प्रतिबिंब होगा?

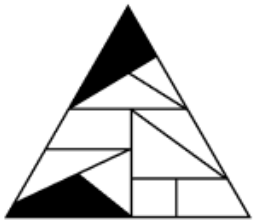



Ans

✗ 1.

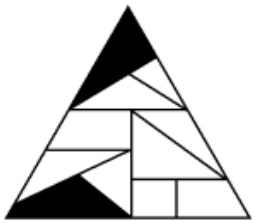

✗ 2.

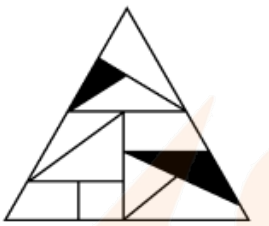

✓ 3.



✗ 4.



Question ID : **4410098649 35**
Option 1 ID : **4410093412841**
Option 2 ID : **4410093412843**
Option 3 ID : **4410093412842**
Option 4 ID : **4410093412840**

Quick Sarkari

Q.7 अंग्रेजी वर्णमाला क्रम के आधार पर दी गई शृंखला में ? के स्थान पर क्या आना चाहिए?
NIOD VQWL DYET LGMB ?

Ans
✗ 1. THGV
✓ 2. TOUJ
✗ 3. TOIL
✗ 4. TUHG

Question ID : **4410091618940**
Option 1 ID : **4410096394635**
Option 2 ID : **4410096394632**
Option 3 ID : **4410096394634**
Option 4 ID : **4410096394633**

Q.8 निम्नलिखित श्रृंखला का संदर्भ लें और नीचे दिए गए प्रश्न का उत्तर दें। गिनती केवल बाएँ से दाएँ की जानी है। (सभी संख्याएँ केवल एकल-अंकीय संख्याएँ हैं)।
(बाएँ) 6 9 5 4 2 1 4 5 8 4 6 7 3 6 8 5 2 9 1 2 1 7 4 4 5 5 8 4 4 2 (दाएँ)
ऐसे कितने अभाज्य अंक हैं जिनमें से प्रत्येक के ठीक पहले एक सम अंक है और ठीक बाद एक सम अंक है?

Ans
✗ 1. तीन
✗ 2. एक
✓ 3. दो
✗ 4. तीन से अधिक

Question ID : **441009784837**
Option 1 ID : **4410093093354**
Option 2 ID : **4410093093352**
Option 3 ID : **4410093093353**
Option 4 ID : **4410093093351**

Q.9 अंग्रेज़ी वर्णमाला क्रम पर आधारित, निम्नलिखित चार अक्षर-समूहों में से तीन एक निश्चित तरीके से समान हैं और इस प्रकार वे एक ग्रुप बनाते हैं। कौन-सा अक्षर-समूह उस ग्रुप से संबंधित नहीं है?
(नोट: असंगत अक्षर-समूह, व्यंजनों/स्वरों की संख्या या उनकी स्थिति पर आधारित नहीं है।)

Ans
✓ 1. XVS
✗ 2. ZWU
✗ 3. FCA
✗ 4. PMK

Question ID : **441009782362**
Option 1 ID : **4410093083451**
Option 2 ID : **4410093083452**
Option 3 ID : **4410093083453**
Option 4 ID : **4410093083454**

QuickSarkari.com | WhatsApp Channel | Telegram: t.me/quick_sarkari

Q.10 निम्नलिखित अक्षर श्रृंखला का संदर्भ लें और प्रश्न का उत्तर दें। गिनती केवल बाएँ से दाएँ की जानी है।
(बाएँ) P V V M H V X E L E E F T S I O X I G (दाएँ)
ऐसे कितने स्वर हैं जिनमें से प्रत्येक के ठीक पहले एक व्यंजन है और ठीक बाद में एक स्वर भी है?

Ans
✗ 1. 4
✓ 2. 2
✗ 3. 1
✗ 4. 3

Question ID : **4410097797 69**
Option 1 ID : **4410093073082**
Option 2 ID : **4410093073080**
Option 3 ID : **4410093073079**
Option 4 ID : **4410093073081**

Q.11 यह प्रश्न नीचे दी गई तीन अंकों वाली पांच संख्याओं पर आधारित है।
(बाएँ) 589 524 539 617 676 (दाएँ)
(उदाहरण- 697 – पहला अंक = 6, दूसरा अंक = 9 और तीसरा अंक = 7)
नोट - सभी संक्रियाएँ बाएँ से दाएँ की जानी हैं।

सबसे बड़ी संख्या के तीसरे अंक को सबसे छोटी संख्या के दूसरे अंक में जोड़ने पर परिणाम कितना प्राप्त होगा?

Ans
✗ 1. 6
✓ 2. 8
✗ 3. 5
✗ 4. 7

Question ID : **4410097882 97**
Option 1 ID : **4410093107188**
Option 2 ID : **4410093107190**
Option 3 ID : **4410093107187**
Option 4 ID : **4410093107189**

Q.12 यदि '+' और '-' को परस्पर बदल दिया जाए तथा 'x' और '÷' को परस्पर बदल दिया जाए, तो निम्नलिखित समीकरण में '?' के स्थान पर क्या आएगा?
18 x 2 + 7 - 3 ÷ 1 = ?

Ans
✗ 1. 3
✓ 2. 5
✗ 3. 12
✗ 4. 8

Question ID : **4410091609180**
Option 1 ID : **4410096355636**
Option 2 ID : **4410096355637**
Option 3 ID : **4410096355639**
Option 4 ID : **4410096355638**

QuickSarkari.com | WhatsApp Channel | Telegram: t.me/quick_sarkari

Q.13 यदि एक जल स्रोत को X-Y के अनुदिश रखा जाता है, जैसा कि दिए गए चित्र में दिखाया गया है, तो दिए गए विकल्पों में से कौन-सा निम्न चित्र का जल प्रतिबिंब होगा?

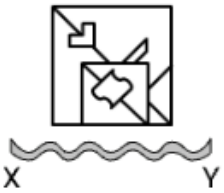

Ans

✗ 1. 

✗ 2. 

✗ 3. 

✓ 4. 

Question ID : **4410091614507**
Option 1 ID : **4410096376845**
Option 2 ID : **4410096376847**
Option 3 ID : **4410096376846**
Option 4 ID : **4410096376848**

Q.14 सात व्यक्ति, E, F, G, H, K, L और N, उत्तर की ओर अभिमुख होकर एक पंक्ति में बैठे हैं। K और E के बीच केवल दो व्यक्ति बैठे हैं। H के दाईं ओर केवल G बैठा है। E और H के बीच केवल एक व्यक्ति बैठा है। N, L के दाईं ओर किसी एक स्थान पर लेकिन F के बाईं ओर किसी एक स्थान पर बैठा है। F और L के बीच कितने व्यक्ति बैठे हैं?

Ans

✓ 1. दो

✗ 2. तीन

✗ 3. एक

✗ 4. चार

Question ID : **441009216750**
Option 1 ID : **441009851040**
Option 2 ID : **441009851041**
Option 3 ID : **441009851039**
Option 4 ID : **441009851042**

Q.15 उत्तर की ओर अभिमुख होकर बैठे व्यक्तियों की एक पंक्ति में, तान्या बाएं छोर से 14वें स्थान पर है। राहुल बाएं छोर से 29वें स्थान पर है। तान्या और आदित्य के ठीक बीच में राहुल बैठा है। यदि आदित्य पंक्ति के दाएं छोर से 5वें स्थान पर है, तो पंक्ति में कुल कितने व्यक्ति हैं?

Ans
✗ 1. 47
✓ 2. 48
✗ 3. 46
✗ 4. 49

Question ID : **4410091619668**
Option 1 ID : **4410096397529**
Option 2 ID : **4410096397530**
Option 3 ID : **4410096397528**
Option 4 ID : **4410096397531**

Q.16 दी गई शृंखला में '?' के स्थान पर क्या आएगा?

5 11 23 47 95 ?

Ans
✗ 1. 204
✓ 2. 191
✗ 3. 200
✗ 4. 195

Question ID : **4410091528153**
Option 1 ID : **4410096035808**
Option 2 ID : **4410096035805**
Option 3 ID : **4410096035807**
Option 4 ID : **4410096035806**

Q.17 E, F, G, I, W, X और Y में से प्रत्येक की परीक्षा सोमवार से शुरू होकर रविवार को समाप्त होने वाले एक ही सप्ताह के अलग-अलग दिन है। I और F के बीच केवल तीन लोगों की परीक्षा होती है। W और X के बीच केवल तीन लोगों की परीक्षा होती है। E की परीक्षा F से पहले किसी दिन और Y के बाद किसी दिन होती है। केवल G की परीक्षा X से पहले होती है। I के बाद कितने लोगों की परीक्षा होती है?

Ans
✗ 1. दो
✓ 2. चार
✗ 3. तीन
✗ 4. एक

Question ID : **441009216483**
Option 1 ID : **441009849972**
Option 2 ID : **441009849974**
Option 3 ID : **441009849973**
Option 4 ID : **441009849971**

QuickSarkari

Q.18 अंग्रेजी वर्णमाला क्रम पर आधारित, निम्नलिखित चार अक्षर-समूहों में से तीन एक निश्चित तरीके से एकसमान हैं और इस प्रकार एक ग्रुप बनाते हैं। कौन-सा अक्षर-समूह उस ग्रुप से संबंधित नहीं है? (नोट: असंगत अक्षर-समूह, व्यंजनों/स्वरों की संख्या या उनकी स्थिति पर आधारित नहीं है।)

Ans
✗ 1. KOQ
✓ 2. PUV
✗ 3. WAC
✗ 4. GKM

Question ID : **4410097648 42**
Option 1 ID : **4410093013364**
Option 2 ID : **4410093013361**
Option 3 ID : **4410093013363**
Option 4 ID : **4410093013362**

Q.19 F, I का पिता है। I, G का भाई है। W, Z का पिता है। Z, G का पुत्र है। W का F से क्या संबंध है?

Ans
✓ 1. पुत्री का पति
✗ 2. पति
✗ 3. पुत्री का पुत्र
✗ 4. पिता

Question ID : **4410091614480**
Option 1 ID : **4410096376737**
Option 2 ID : **4410096376739**
Option 3 ID : **4410096376738**
Option 4 ID : **4410096376740**

Q.20 ABATAGES शब्द में प्रत्येक स्वर को अंग्रेजी वर्णमाला क्रम में उसके ठीक पहले आने वाले अक्षर से बदल जाता है और प्रत्येक व्यंजन को अंग्रेजी वर्णमाला क्रम में उसके ठीक बाद आने वाले अक्षर से बदल दिया जाता है। निम्नलिखित में से कौन-सा अक्षर, इस प्रकार बने अक्षरों के नए समूह में दो बार से अधिक दिखाई देगा?

Ans
✓ 1. Z
✗ 2. U
✗ 3. C
✗ 4. H

Question ID : **4410092164 75**
Option 1 ID : **4410098499 39**
Option 2 ID : **4410098499 41**
Option 3 ID : **4410098499 40**
Option 4 ID : **4410098499 42**

Section : **General Awareness**

QuickSarkari.com | WhatsApp Channel | Telegram: t.me/quick_sarkari

Q.1 रूस ने 2024 में निम्नलिखित में से किस देश के साथ सैन्य गठबंधन पर हस्ताक्षर किए?

Ans
✗ 1. ईरान
✗ 2. बेलारूस
✗ 3. चीन
✓ 4. उत्तर कोरिया

Question ID : **441009217414**
Option 1 ID : **441009853615**
Option 2 ID : **441009853613**
Option 3 ID : **441009853612**
Option 4 ID : **441009853614**

Q.2 ध्वनि तरंगों के विपरीत, विद्युत् चुंबकीय तरंगें _____ के माध्यम से यात्रा कर सकती हैं।

Ans
✗ 1. केवल जल
✗ 2. केवल वायु
✗ 3. केवल ठोस
✓ 4. निर्वात

Question ID : **441009513675**
Option 1 ID : **4410092009844**
Option 2 ID : **4410092009847**
Option 3 ID : **4410092009845**
Option 4 ID : **4410092009846**

Q.3 कुतुबुद्दीन ऐबक किस वर्ष मुहम्मद गोरी के भारतीय क्षेत्र का शासक बना था?

Ans
✗ 1. 1192 ईस्वी
✗ 2. 1210 ईस्वी
✓ 3. 1206 ईस्वी
✗ 4. 1221 ईस्वी

Question ID : **441009205173**
Option 1 ID : **441009806913**
Option 2 ID : **441009806915**
Option 3 ID : **441009806914**
Option 4 ID : **441009806916**

Q.4 आवधिक श्रम बल सर्वेक्षण (PLFS) के अनुसार, भारत में 15 वर्ष और उससे अधिक आयु के व्यक्तियों के लिए बेरोजगारी दर (UR) 2017-18 में 6% से घटकर 2023-24 में कितनी हो गई।

Ans
✗ 1. 4.2%
✗ 2. 2.2%
✗ 3. 5.2%
✓ 4. 3.2%

Question ID : **441009226971**
Option 1 ID : **441009888696**
Option 2 ID : **441009888698**
Option 3 ID : **441009888695**
Option 4 ID : **441009888697**

QuickSarkari.com | WhatsApp Channel | Telegram: t.me/quick_sarkari

Q.5 2011 की जनगणना में सूचीबद्ध धार्मिक समूहों में से किस धार्मिक समूह की जनसंख्या में हिस्सेदारी सबसे कम थी?

Ans
✗ 1. हिंदू
✓ 2. जैन
✗ 3. सिख
✗ 4. बौद्ध

Question ID : **441009637393**
Option 1 ID : **4410092503718**
Option 2 ID : **4410092503716**
Option 3 ID : **4410092503717**
Option 4 ID : **4410092503715**

Q.6 भारतीय संविधान के मौलिक अधिकारों में शामिल कौन-सा अनुच्छेद कारखानों में बच्चों के रोजगार पर प्रतिबंध से संबंधित है और कहता है कि 'चौदह वर्ष से कम आयु के किसी भी बच्चे को किसी कारखाने या खदान में काम करने के लिए नियोजित नहीं किया जाएगा या किसी अन्य खतरनाक रोजगार में नहीं लगाया जाएगा'?

Ans
✗ 1. अनुच्छेद 19
✓ 2. अनुच्छेद 24
✗ 3. अनुच्छेद 31
✗ 4. अनुच्छेद 14

Question ID : **441009323487**
Option 1 ID : **4410091260131**
Option 2 ID : **4410091260132**
Option 3 ID : **4410091260133**
Option 4 ID : **4410091260130**

Q.7 संरचनात्मक बेरोजगारी मुख्य रूप से _____ के कारण होती है।

Ans
✗ 1. चक्रीय मांग में गिरावट (Cyclical demand fall)
✗ 2. ऋतुनिष्ठ विचरण (Seasonal variation)
✓ 3. कौशल बेमेल (Skill mismatch)
✗ 4. स्वैच्छिकता: नौकरी छोड़ने (Voluntary quitting)

Question ID : **4410091120869**
Option 1 ID : **4410094419363**
Option 2 ID : **4410094419361**
Option 3 ID : **4410094419362**
Option 4 ID : **4410094419364**

QuickSarkari.com | WhatsApp Channel | Telegram: t.me/quick_sarkari

Q.8 निम्नलिखित में से कौन-सा सितार उस्ताद, भारत में शास्त्रीय संगीत में अपने योगदान के लिए प्रसिद्ध है?

Ans
✗ 1. पंडित भीमसेन जोशी
✗ 2. ज़ाकिर हुसैन
✓ 3. रविशंकर
✗ 4. आर. डी. बर्मन

Question ID : **441009749559**
Option 1 ID : **4410092952064**
Option 2 ID : **4410092952062**
Option 3 ID : **4410092952063**
Option 4 ID : **4410092952065**

Q.9 निम्नलिखित में से कौन-सा अपूर्ण प्रोटीन (प्रोटीन का एक ऐसा स्रोत जिसमें सभी अनिवार्य ऐमीनो अम्ल पर्याप्त मात्रा में मौजूद नहीं होते हैं) है?

Ans
✓ 1. दाल
✗ 2. दूध
✗ 3. अंडा
✗ 4. मछली

Question ID : **441009616788**
Option 1 ID : **4410092421321**
Option 2 ID : **4410092421322**
Option 3 ID : **4410092421323**
Option 4 ID : **4410092421324**

Q.10 1236 में, दिल्ली के शासक के रूप में रजिया की क्षमताओं का वर्णन करने वाला इतिहासकार कौन था?

Ans
✗ 1. इब्न बतूता
✗ 2. अमीर ख़ुसरो
✓ 3. मिन्हाज-ए सिराज
✗ 4. फ़रिश्ता

Question ID : **441009205181**
Option 1 ID : **441009806946**
Option 2 ID : **441009806945**
Option 3 ID : **441009806947**
Option 4 ID : **441009806948**

QuickSarkari.com | WhatsApp Channel | Telegram: t.me/quick_sarkari

Q.11 निम्नलिखित में से किस राज्य के राज्यपाल को भारतीय संविधान के अनुच्छेद 371 A के अंतर्गत राज्य में कानून और व्यवस्था बनाए रखने की विशेष जिम्मेदारी सौंपी गई है?

Ans

✗ 1. मिजोरम

✗ 2. असम

✓ 3. नागालैंड

✗ 4. मणिपुर

Question ID : **4410094604 67**
Option 1 ID : **4410091800590**
Option 2 ID : **4410091800588**
Option 3 ID : **4410091800591**
Option 4 ID : **4410091800589**

Q.12 सागौन, भारत में किस प्रकार के वन की सबसे प्रमुख प्रजाति है?

Ans

✓ 1. उष्णकटिबंधीय पर्णपाती वन

✗ 2. उष्णकटिबंधीय सदाबहार वन

✗ 3. कंटक वन और झाड़ियां

✗ 4. पर्वतीय वन

Question ID : **4410096386 61**
Option 1 ID : **4410092508788**
Option 2 ID : **4410092508787**
Option 3 ID : **4410092508789**
Option 4 ID : **4410092508790**

Q.13 2025 में, किर्गिस्तान में आयोजित अभ्यास खंजर (KHANJAR) के 12वें संस्करण में भारत का प्रतिनिधित्व किस भारतीय विशेष बल इकाई ने किया था?

Ans

✗ 1. सिख लाइट इन्फैंट्री रेजिमेंट (विशेष बल)

✓ 2. पैराशूट रेजिमेंट (विशेष बल)

✗ 3. जाट इन्फैंट्री रेजिमेंट (विशेष बल)

✗ 4. गढ़वाल राइफल्स रेजिमेंट (विशेष बल)

Question ID : **4410092758 78**
Option 1 ID : **4410091071683**
Option 2 ID : **4410091071685**
Option 3 ID : **4410091071686**
Option 4 ID : **4410091071684**

QuickSarkari.com | WhatsApp Channel | Telegram: t.me/quick_sarkari

Q.14 1820-21 के दौरान, ब्रिटिश और जमींदार उत्पीड़न के खिलाफ विद्रोह करने वाले हो समुदाय (Ho community) के लोग निम्नलिखित में से मुख्य रूप से किस क्षेत्र में स्थित थे?

Ans
✗ 1. गोड्डा (Godda)
✗ 2. गुमला (Gumla)
✗ 3. सरायकेला (Saraikela)
✓ 4. सिंहभूम (Singhbhum)

Question ID : **4410091551175**
Option 1 ID : **4410096126957**
Option 2 ID : **4410096126958**
Option 3 ID : **4410096126956**
Option 4 ID : **4410096126955**

Q.15 अप्रैल 2025 में, फ्रांसीसी लग्जरी ब्रांड 'चैनल (Chanel)' ने किस बॉलीवुड अभिनेत्री को भारत से अपना पहला ब्रांड एंबेसडर नामित किया?

Ans
✗ 1. श्रद्धा कपूर
✗ 2. दिशा पाटनी
✓ 3. अनन्या पांडे
✗ 4. आलिया भट्ट

Question ID : **441009306116**
Option 1 ID : **4410091191193**
Option 2 ID : **4410091191191**
Option 3 ID : **4410091191192**
Option 4 ID : **4410091191190**

Q.16 भारतीय संविधान में राज्य के नीति निर्देशक सिद्धांतों के बारे में क्या वर्णित है?

Ans
✗ 1. ये राष्ट्रीय आपातकाल की अवधि के दौरान अधिकारों को अधिभावी कर देते हैं।
✓ 2. ये प्रवर्तनीय नहीं होते हैं, लेकिन राज्य-शासन का मार्गदर्शन करते हैं।
✗ 3. ये कानूनी रूप से बाध्यकारी होते हैं और न्यायालयों द्वारा प्रवर्तनीय होते हैं।
✗ 4. ये वैकल्पिक होते हैं और सरकार द्वारा उनकी उपेक्षा की जा सकती है।

Question ID : **441009671684**
Option 1 ID : **4410092640823**
Option 2 ID : **4410092640822**
Option 3 ID : **4410092640820**
Option 4 ID : **4410092640821**

QuickSarkari

Q.17 निम्नलिखित में से किस प्रकार की मृदा उत्तरी भारतीय मैदानों और नदी घाटियों में व्यापक रूप से विस्तृत है?

Ans
✗ 1. लैटेराइट मृदा
✓ 2. जलोढ़ मृदा
✗ 3. काली मृदा
✗ 4. शुष्क मृदा

Question ID : **441009638688**
Option 1 ID : **4410092508898**
Option 2 ID : **4410092508896**
Option 3 ID : **4410092508895**
Option 4 ID : **4410092508897**

Q.18 भारत-पाकिस्तान के बीच चल रहे संघर्ष का इंडियन प्रीमियर लीग (IPL) 2025 पर क्या प्रभाव पड़ा?

Ans
✗ 1. IPL 2025 सीजन बिना किसी रुकावट के जारी रहा।
✗ 2. IPL 2025 सीजन संयुक्त अरब अमीरात में स्थानांतरित कर दिया गया।
✗ 3. IPL 2025 सीजन पूरी तरह से रद्द कर दिया गया।
✓ 4. IPL 2025 सीजन एक सप्ताह के लिए स्थगित कर दिया गया।

Question ID : **441009312279**
Option 1 ID : **4410091215599**
Option 2 ID : **4410091215601**
Option 3 ID : **4410091215598**
Option 4 ID : **4410091215600**

Q.19 हसन नसरल्लाह की मृत्यु के बाद हिज़्बुल्लाह का नया प्रमुख कौन बना?

Ans
✗ 1. ज़ैनब सोलेमानी (Zeinab Soleimani)
✓ 2. नईम कासिम (Naim Qassem)
✗ 3. हाशेम सफीद्दीन (Hashem Saifeddine)
✗ 4. रायदा फ़कीह (Raeda Faqih)

Question ID : **441009217412**
Option 1 ID : **441009853605**
Option 2 ID : **441009853607**
Option 3 ID : **441009853604**
Option 4 ID : **441009853606**

Q.20 अलाउद्दीन खिलजी की राजधानी कहाँ बनाई गई थी?

Ans
✗ 1. जहाँपनाह
✓ 2. सिरी
✗ 3. तुगलकाबाद
✗ 4. फिरोजाबाद

Question ID : **441009606886**
Option 1 ID : **4410092382664**
Option 2 ID : **4410092382663**
Option 3 ID : **4410092382661**
Option 4 ID : **4410092382662**

QuickSarkari.com | WhatsApp Channel | Telegram: t.me/quick_sarkari

Section : **Arithmetical and Numerical Ability**

Q.1 एक व्यापारी एक थैला ₹1,260 में बेचता है जिस पर उसे 10% की हानि होती है। थैले का क्रय मूल्य ज्ञात कीजिए।

Ans
✗ 1. ₹1,300
✗ 2. ₹1,450
✓ 3. ₹1,400
✗ 4. ₹1,350

Question ID : **4410091546338**
Option 1 ID : **4410096108223**
Option 2 ID : **4410096108226**
Option 3 ID : **4410096108225**
Option 4 ID : **4410096108224**

Q.2 80 का 30%, 30 के 25% से कितना अधिक है?

Ans
✗ 1. 13.5
✗ 2. 11.5
✓ 3. 16.5
✗ 4. 18.5

Question ID : **441009857037**
Option 1 ID : **4410093381122**
Option 2 ID : **4410093381121**
Option 3 ID : **4410093381120**
Option 4 ID : **4410093381123**

Q.3 7 संख्याओं का औसत 25 निकाला गया। बाद में पाया गया कि दो संख्याएँ 29 और 12 गलती से 10 और 10 के रूप में लिख दी गई थीं। सही औसत ज्ञात कीजिए।

Ans
✓ 1. 28
✗ 2. 27
✗ 3. 25
✗ 4. 29

Question ID : **441009544140**
Option 1 ID : **4410092131956**
Option 2 ID : **4410092131958**
Option 3 ID : **4410092131957**
Option 4 ID : **4410092131959**

QuickSarkari.com | WhatsApp Channel | Telegram: t.me/quick_sarkari

Q.4 यदि 9.9 : x :: x : 27.5, और x > 0 है, तो x का मान ज्ञात कीजिए।

Ans
✗ 1. 13
✗ 2. 19.7
✗ 3. 12.9
✓ 4. 16.5

Question ID : **441009153611**
Option 1 ID : **441009609617**
Option 2 ID : **441009609616**
Option 3 ID : **441009609615**
Option 4 ID : **441009609614**

Q.5 A किसी कार्य को 17 दिनों में और B उसी कार्य को 23 दिनों में पूरा करता है। यदि वे दोनों 5 दिनों तक उसी कार्य को एक साथ करते हैं तो कितना कार्य शेष रह जाएगा?

Ans
✗ 1. $\frac{189}{391}$
✓ 2. $\frac{191}{391}$
✗ 3. $\frac{188}{391}$
✗ 4. $\frac{194}{391}$

Question ID : **441009913875**
Option 1 ID : **4410093609754**
Option 2 ID : **4410093609751**
Option 3 ID : **4410093609752**
Option 4 ID : **4410093609753**

Q.6 केतन के दो पौत्र, महेश और डेविड हैं। 13 वर्षीय महेश को केतन की संपत्ति से कुछ धनराशि मिलती है, और 14 वर्षीय डेविड को शेष धनराशि मिलती है। लेकिन महेश और डेविड को यह धनराशि तभी मिलेगी जब वे 25 वर्ष के हो जाएंगे। तब तक, धनराशि किसी बैंक में रखी जाएगी जिस पर 5% वार्षिक दर से ब्याज (वार्षिक रूप से संयोजित) अर्जित होगा। जब दोनों 25 वर्ष के हो जाएंगे, तो उन्हें समान धनराशि मिलेगी। यदि केतन के पास कुल धनराशि ₹24,600 थी, तो केतन ने शुरुआत में डेविड को कितनी धनराशि (₹ में) दी थी?

Ans
✗ 1. 12,950
✓ 2. 12,600
✗ 3. 12,000
✗ 4. 11,750

Question ID : **441009543438**
Option 1 ID : **4410092129150**
Option 2 ID : **4410092129148**
Option 3 ID : **4410092129149**
Option 4 ID : **4410092129151**

Q.7 $\left(\frac{2}{7}\right) \times \left(\frac{21}{10}\right) + \left(\frac{9}{5} - 6\right)$ का मान ज्ञात कीजिए।

Ans
1. $-\frac{11}{2}$
2. $-\frac{18}{5}$
3. $-\frac{17}{8}$
4. $-\frac{8}{15}$

Question ID : **441009910891**
Option 1 ID : **4410093597817**
Option 2 ID : **4410093597815**
Option 3 ID : **4410093597818**
Option 4 ID : **4410093597816**

Q.8 एक सेल के दौरान, 60% वस्तुओं को 47% लाभ पर बेचा जाता है। शेष वस्तुओं में से 40% वस्तुओं को 44% लाभ पर बेचा जाता है, और उसके बाद शेष वस्तुओं को 11% हानि पर बेचा जाता है। यदि सभी वस्तुओं का क्रय मूल्य समान है, और समग्र लाभ x% है, तो x का मान कितना होगा?

Ans
1. 33.4
2. 30.5
3. 31.5
4. 32.6

Question ID : **441009547566**
Option 1 ID : **4410092145662**
Option 2 ID : **4410092145663**
Option 3 ID : **4410092145661**
Option 4 ID : **4410092145660**

Q.9 What is the diameter of the largest circle lying on the surface of a sphere of surface area 2,98,144 cm^2?
$\left(\text{Use } \pi = \frac{22}{7}\right)$

Ans
1. 237 cm
2. 716 cm
3. 154 cm
4. 308 cm

Question ID : **441009602798**
Option 1 ID : **4410092366309**
Option 2 ID : **4410092366310**
Option 3 ID : **4410092366311**
Option 4 ID : **4410092366312**

Quick Sarkari

Q.10 यदि घन का आयतन 19683 m^3 है, तो घन का संपूर्ण पृष्ठीय क्षेत्रफल (m^2) में ज्ञात कीजिए।

Ans

✗ 1. 4421

✗ 2. 4392

✗ 3. 4341

✓ 4. 4374

Question ID : **441009125601**
Option 1 ID : **441009499249**
Option 2 ID : **441009499248**
Option 3 ID : **441009499250**
Option 4 ID : **441009499247**

Q.11 ग्राफ का अध्ययन करें और निम्नलिखित प्रश्न का उत्तर दें। तीन व्यक्तियों A, B और C द्वारा खरीदे गए विभिन्न फलों के बारे में जानकारी ग्राफ में दी गई है।

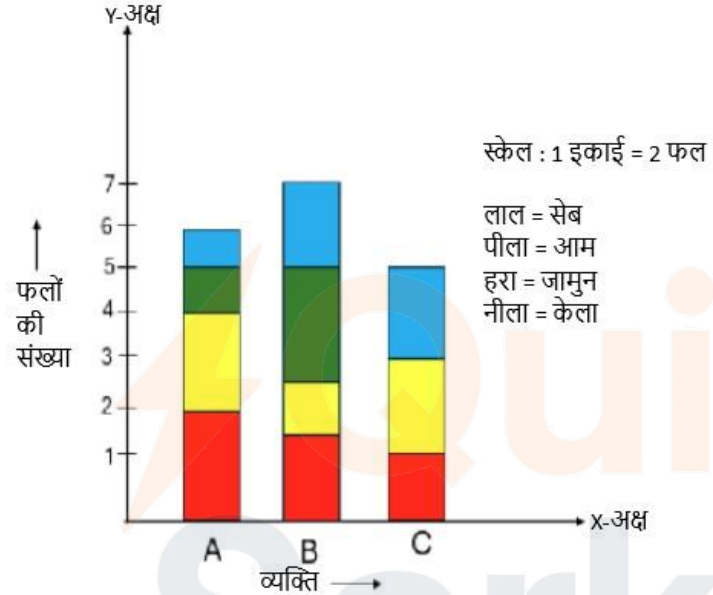

A, B और C द्वारा एक साथ ख़रीदे गए फलों की कुल संख्या कितनी है?

Ans

✗ 1. 30

✗ 2. 18

✓ 3. 36

✗ 4. 24

Question ID : **441009364035**
Option 1 ID : **4410091422390**
Option 2 ID : **4410091422392**
Option 3 ID : **4410091422391**
Option 4 ID : **4410091422393**

QuickSarkari.com | WhatsApp Channel | Telegram: t.me/quick_sarkari

Q.12 एक दुकानदार किसी वस्तु का मूल्य ₹5,000 अंकित करता है। वह खुदरा विक्रेता को 20% की व्यापार छूट देता है। खुदरा विक्रेता को एक और स्कीम छूट मिलती है: "₹4,000 का सामान खरीदें और ₹200 की अतिरिक्त छूट पाएँ"। खुदरा विक्रेता को अंत में कितनी धनराशि का भुगतान करना होगा?

Ans
✗ 1. ₹4,200
✓ 2. ₹3,800
✗ 3. ₹4,000
✗ 4. ₹3,600

Question ID : **4410091546515**
Option 1 ID : **4410096108946**
Option 2 ID : **4410096108944**
Option 3 ID : **4410096108945**
Option 4 ID : **4410096108943**

Q.13 यदि कोई लड़का 8 km/hr की चाल से दौड़ता है, तो उसे 20 मीटर भुजा वाले वर्गाकार मैदान का एक पूरा चक्कर लगाने में कितने सेकंड का समय लगेगा?

Ans
✗ 1. 16
✓ 2. 36
✗ 3. 46
✗ 4. 26

Question ID : **441009173298**
Option 1 ID : **441009685697**
Option 2 ID : **441009685696**
Option 3 ID : **441009685699**
Option 4 ID : **441009685698**

Q.14 P ने ₹21000 का निवेश करके एक सॉफ्टवेयर व्यवसाय शुरू किया। नौ महीने बाद, R, ₹72000 की पूंजी के साथ उसके साथ व्यवसाय में शामिल हो गया। 3 वर्ष बाद, उन्होंने ₹50000 का लाभ अर्जित किया। लाभ में P का हिस्सा (₹ में, निकटतम पूर्णांक तक पूर्णांकित) कितना था?

Ans
✗ 1. 13931
✗ 2. 13882
✓ 3. 14000
✗ 4. 13902

Question ID : **441009898437**
Option 1 ID : **4410093547820**
Option 2 ID : **4410093547821**
Option 3 ID : **4410093547818**
Option 4 ID : **4410093547819**

QuickSarkari

Q.15 संख्याओं 5, 3.2 और 0.03 का लघुत्तम समापवर्त्य ज्ञात कीजिए।

Ans
✗ 1. 120
✓ 2. 240
✗ 3. 160
✗ 4. 480

Question ID : **441009525624**
Option 1 ID : **4410092057915**
Option 2 ID : **4410092057916**
Option 3 ID : **4410092057917**
Option 4 ID : **4410092057918**

Q.16 किस राशि (₹ में) पर 4 वर्षों में 4% वार्षिक ब्याज दर से साधारण ब्याज के रूप में ₹1680 प्राप्त होगा?

Ans
✗ 1. 10250
✓ 2. 10500
✗ 3. 10200
✗ 4. 10550

Question ID : **441009852622**
Option 1 ID : **4410093363461**
Option 2 ID : **4410093363460**
Option 3 ID : **4410093363463**
Option 4 ID : **4410093363462**

Q.17 एक परिवार के 40 kg, 49 kg, 57 kg, 77 kg और 35 kg वजन वाले पांच सदस्यों का औसत वजन ज्ञात कीजिए।

Ans
✓ 1. 51.6 kg
✗ 2. 52.6 kg
✗ 3. 53.6 kg
✗ 4. 50.6 kg

Question ID : **441009582034**
Option 1 ID : **4410092283262**
Option 2 ID : **4410092283263**
Option 3 ID : **4410092283265**
Option 4 ID : **4410092283264**

Quick Sarkari

Q.18 एक पाइप किसी खाली टंकी को 11 घंटे में भर सकता है, जबकि एक अन्य पाइप भरी हुई टंकी को 44 घंटे में खाली कर सकता है। यदि टंकी खाली होने पर दोनों पाइप एक साथ खोले जाएं, तो टंकी का $\frac{3}{4}$ भाग भरने में कितने घंटे लगेंगे?

Ans
✗ 1. 22
✗ 2. 33
✗ 3. 44
✓ 4. 11

Question ID : **441009519289**
Option 1 ID : **4410092032576**
Option 2 ID : **4410092032578**
Option 3 ID : **4410092032577**
Option 4 ID : **4410092032575**

Q.19 एक गोले के भीतर एक शंकु इस प्रकार अंतर्निहित है कि शंकु की त्रिज्या गोले की त्रिज्या के समान है और शंकु की ऊंचाई गोले के व्यास के बराबर है। गोले के आयतन और शंकु के आयतन के बीच क्या संबंध है?

Ans
✗ 1. शंकु का आयतन गोले के आयतन का दो-तिहाई है।
✗ 2. शंकु का आयतन गोले के आयतन का एक-तिहाई है।
✗ 3. शंकु का आयतन गोले के आयतन का तीन-चौथाई है।
✓ 4. गोले का आयतन शंकु के आयतन का दोगुना है।

Question ID : **44100917580**
Option 1 ID : **44100970169**
Option 2 ID : **44100970168**
Option 3 ID : **44100970170**
Option 4 ID : **44100970167**

Q.20 A और B के बीच की दूरी 1,223 km है। A से, चमन 77 km/hr की चाल से B तक जाता है और 150 km/hr की चाल से A पर वापस आ जाता है।
चमन की औसत चाल (दशमलव के दो स्थानों तक पूर्णांकित) ज्ञात कीजिए।

Ans
✓ 1. 101.76 km/hr
✗ 2. 96.51 km/hr
✗ 3. 96.35 km/hr
✗ 4. 108.58 km/hr

Question ID : **441009209085**
Option 1 ID : **441009821623**
Option 2 ID : **441009821626**
Option 3 ID : **441009821625**
Option 4 ID : **441009821624**

Section : **English Language and Comprehension**

QuickSarkari

Q.1 **Parts of a sentence are given below. While the first part is in the correct place, the remaining parts (labelled A, B, C and D) are jumbled up. Arrange the parts in the correct order to form a meaningful and coherent sentence.**

The talented musician
(A) melody on the piano, captivating
(B) skilfully played the beautiful
(C) their performance
(D) the audience with

Ans
✗ 1. BCAD
✓ 2. BADC
✗ 3. DACB
✗ 4. ABCD

Question ID : **441009352176**
Option 1 ID : **4410091375057**
Option 2 ID : **4410091375056**
Option 3 ID : **4410091375055**
Option 4 ID : **4410091375054**

Q.2 **Select the most appropriate option to substitute the underlined word segment in the given sentence.**

Since the task was straightforward, the manager reminded the team that a simple and easy task can be quickly done.

Ans
✓ 1. a bald head is soon shaved
✗ 2. a little pot is soon hot
✗ 3. a stitch in time saves nine
✗ 4. a guilty conscience needs no accuser

Question ID : **4410091543674**
Option 1 ID : **4410096097756**
Option 2 ID : **4410096097755**
Option 3 ID : **4410096097754**
Option 4 ID : **4410096097757**

Q.3 **Select the most appropriate verb to fill in the blank.**

Yesterday, they ___ indoors because of the storm.

Ans
✓ 1. stayed
✗ 2. staying
✗ 3. stay
✗ 4. stays

Question ID : **441009266958**
Option 1 ID : **4410091037178**
Option 2 ID : **4410091037177**
Option 3 ID : **4410091037179**
Option 4 ID : **4410091037176**

Quick Sarkari

Q.4 **Select the most appropriate article to fill in the blank. If no article is needed, select 'No article required'.**

He had _____ idea about how to solve the problem.

Ans

✔ 1. an

✘ 2. No article required

✘ 3. the

✘ 4. a

Question ID : **441009482752**
Option 1 ID : **4410091886358**
Option 2 ID : **4410091886360**
Option 3 ID : **4410091886359**
Option 4 ID : **4410091886357**

Q.5 **Choose the option which will correctly substitute the underlined words.**

I always tell my students that <u>practical work is more important than mere words.</u>

Ans

✘ 1. The early bird catches the worm

✔ 2. Actions speak louder than words

✘ 3. Jack of all trades, master of none

✘ 4. A penny saved is a penny earned

Question ID : **441009415887**
Option 1 ID : **4410091628940**
Option 2 ID : **4410091628939**
Option 3 ID : **4410091628941**
Option 4 ID : **4410091628938**

Q.6 **Choose the most appropriate option to fill in the given blanks.**

He didn't come to class ___ he was sick, ___ he sent his assignment.

Ans

✘ 1. as, or

✘ 2. although, and

✔ 3. because, but

✘ 4. since, and

Question ID : **4410091126957**
Option 1 ID : **4410094443383**
Option 2 ID : **4410094443381**
Option 3 ID : **4410094443380**
Option 4 ID : **4410094443382**

QuickSarkari.com | WhatsApp Channel | Telegram: t.me/quick_sarkari

Q.7 **A sentence has been broken into parts, jumbled, and marked as PQRST. Arrange all the parts to make a coherent sentence.**

P) which demonstrated a new method
Q) the scientist presented her research
R) useful biodegradable materials
S) for converting plastic waste into
T) with remarkable efficiency

Ans

✗ 1. TSRQP

✗ 2. SQPRT

✗ 3. PQSTR

✓ 4. QPSRT

Question ID : **4410091555134**
Option 1 ID : **4410096143181**
Option 2 ID : **4410096143180**
Option 3 ID : **4410096143182**
Option 4 ID : **4410096143179**

Q.8 **Choose the option that expresses the antonym of 'impecunious' as used in the sentence.**

Despite being impecunious in his early years, the scientist pursued his research with unwavering dedication.

Ans

✗ 1. valiant

✓ 2. affluent

✗ 3. frugal

✗ 4. destitute

Question ID : **4410091526896**
Option 1 ID : **4410096030695**
Option 2 ID : **4410096030696**
Option 3 ID : **4410096030697**
Option 4 ID : **4410096030694**

Q.9 **Select the option that can be used as a one-word substitute for the given group of words/phrase.**

A person who studies the science of the universe beyond the Earth's atmosphere

Ans

✗ 1. Geologist

✗ 2. Biologist

✓ 3. Astronomer

✗ 4. Meteorologist

Question ID : **441009352154**
Option 1 ID : **4410091374966**
Option 2 ID : **4410091374968**
Option 3 ID : **4410091374967**
Option 4 ID : **4410091374969**

QuickSarkari.com | WhatsApp Channel | Telegram: t.me/quick_sarkari

Q.10 **Rectify the given sentence by selecting the correct spelling of the misspelt word from the options.**

The teacher explained the significanse of hard work in achieving success, emphasizing that patience and dedication are the true keys to reaching one's goals in life.

Ans

✗ 1. acheving

✓ 2. significance

✗ 3. sucess

✗ 4. techer

Question ID : **4410091265547**
Option 1 ID : **4410094995090**
Option 2 ID : **4410094995092**
Option 3 ID : **4410094995091**
Option 4 ID : **4410094995093**

Q.11 **Fill in the blank with the correctly spelt word.**

_____ lines in geometry never intersect regardless of how far they extend.

Ans

✗ 1. Paralel

✗ 2. Parrallel

✗ 3. Paralell

✓ 4. Parallel

Question ID : **4410091048253**
Option 1 ID : **4410094142029**
Option 2 ID : **4410094142030**
Option 3 ID : **4410094142027**
Option 4 ID : **4410094142028**

Q.12 **Choose the option that best completes the sentence using an appropriate adverb.**
Though unfamiliar with the topic, he responded to the questions _____.

Ans

✓ 1. confidently

✗ 2. thoughtfully

✗ 3. nervously

✗ 4. cautiously

Question ID : **4410091122870**
Option 1 ID : **4410094427043**
Option 2 ID : **4410094427042**
Option 3 ID : **4410094427044**
Option 4 ID : **4410094427041**

QuickSarkari

Q.13 **Choose the synonym of the highlighted word from the options given below.**
He tried to cajole his friend into joining the trip by promising it would be unforgettable.

Ans
✗ 1. ignore
✗ 2. insult
✓ 3. persuade
✗ 4. force

Question ID : **4410091527498**
Option 1 ID : **4410096033142**
Option 2 ID : **4410096033141**
Option 3 ID : **4410096033140**
Option 4 ID : **4410096033139**

Q.14 **Select the most appropriate articles to fill in the blanks.**

He went out with __ umbrella knowing that __ little distance away, he was going to witness rain.

Ans
✗ 1. a; an
✗ 2. an; the
✗ 3. the; an
✓ 4. an; a

Question ID : **441009498176**
Option 1 ID : **4410091947916**
Option 2 ID : **4410091947917**
Option 3 ID : **4410091947919**
Option 4 ID : **4410091947918**

Q.15 **Replace the highlighted word segment with the appropriate one-word substitute.**

The country's government ruled by a small, powerful group made decisions that benefited only a few.

Ans
✓ 1. oligarchy
✗ 2. anarchy
✗ 3. democracy
✗ 4. theocracy

Question ID : **4410091555271**
Option 1 ID : **4410096143631**
Option 2 ID : **4410096143634**
Option 3 ID : **4410096143632**
Option 4 ID : **4410096143633**

QuickSarkari.com | WhatsApp Channel | Telegram: t.me/quick_sarkari

Comprehension:

Read the passage and answer the questions that follow.

A new study published in Science provides clear evidence of organic matter on Mars's surface. NASA's rover Curiosity collected the data, confirming earlier findings that Mars once had carbon-based compounds essential for life. These organic molecules were found in Gale Crater, an area that may have been a lake over three billion years ago. The rocks containing the organics also had sulfur, which might have preserved them despite harsh surface radiation. While the presence of organic molecules doesn't prove ancient life—since they could form through non-living processes—it's a significant discovery. About five years ago, Curiosity also detected methane, a basic organic molecule and natural gas component, in the Martian atmosphere. Methane only lasts a few hundred years, suggesting an unknown source replenishes it. Its levels fluctuate seasonally, possibly due to underground icy crystals releasing gas.

These findings indicate Mars is more active than thought and might be becoming more habitable. Future missions, like ESA's Exo Mars and NASA's Mars Rover in 2020, aim to explore the soil and atmosphere further, potentially answering if life ever existed on Mars.

SubQuestion No : 16

Q.16 Identify the central theme of the passage.

Ans

✗ 1. Searching for water on Mars

✓ 2. Discovery of organic matter and its implication for life on Mars

✗ 3. Mars' atmospheric changes

✗ 4. Technical features of the Mars Rover

Question ID : **4410091524135**
Option 1 ID : **4410096019820**
Option 2 ID : **4410096019819**
Option 3 ID : **4410096019822**
Option 4 ID : **4410096019821**

QuickSarkari

Comprehension:

Read the passage and answer the questions that follow.

A new study published in Science provides clear evidence of organic matter on Mars's surface. NASA's rover Curiosity collected the data, confirming earlier findings that Mars once had carbon-based compounds essential for life. These organic molecules were found in Gale Crater, an area that may have been a lake over three billion years ago. The rocks containing the organics also had sulfur, which might have preserved them despite harsh surface radiation. While the presence of organic molecules doesn't prove ancient life—since they could form through non-living processes—it's a significant discovery. About five years ago, Curiosity also detected methane, a basic organic molecule and natural gas component, in the Martian atmosphere. Methane only lasts a few hundred years, suggesting an unknown source replenishes it. Its levels fluctuate seasonally, possibly due to underground icy crystals releasing gas.

These findings indicate Mars is more active than thought and might be becoming more habitable. Future missions, like ESA's Exo Mars and NASA's Mars Rover in 2020, aim to explore the soil and atmosphere further, potentially answering if life ever existed on Mars.

SubQuestion No : 17

Q.17 Identify the fact stated in the passage.

Ans

✗ 1. Organic molecules prove ancient life on Mars.

✓ 2. Organic molecules were found in Gale Crater.

✗ 3. Sulphur destroys organic molecules on Mars.

✗ 4. Methane on Mars lasts for millions of years.

Question ID : **4410091524136**
Option 1 ID : **4410096019826**
Option 2 ID : **4410096019824**
Option 3 ID : **4410096019825**
Option 4 ID : **4410096019823**

QuickSarkari

Comprehension:

Read the passage and answer the questions that follow.

A new study published in Science provides clear evidence of organic matter on Mars's surface. NASA's rover Curiosity collected the data, confirming earlier findings that Mars once had carbon-based compounds essential for life. These organic molecules were found in Gale Crater, an area that may have been a lake over three billion years ago. The rocks containing the organics also had sulfur, which might have preserved them despite harsh surface radiation. While the presence of organic molecules doesn't prove ancient life—since they could form through non-living processes—it's a significant discovery. About five years ago, Curiosity also detected methane, a basic organic molecule and natural gas component, in the Martian atmosphere. Methane only lasts a few hundred years, suggesting an unknown source replenishes it. Its levels fluctuate seasonally, possibly due to underground icy crystals releasing gas.

These findings indicate Mars is more active than thought and might be becoming more habitable. Future missions, like ESA's Exo Mars and NASA's Mars Rover in 2020, aim to explore the soil and atmosphere further, potentially answering if life ever existed on Mars.

SubQuestion No : 18

Q.18 What is the antonym of the word "preserved" as used in the passage?

Ans

✗ 1. Protected

✗ 2. Saved

✓ 3. Destroyed

✗ 4. Maintained

Question ID : **4410091524137**
Option 1 ID : **4410096019830**
Option 2 ID : **4410096019827**
Option 3 ID : **4410096019829**
Option 4 ID : **4410096019828**

QuickSarkari

Comprehension:

Read the passage and answer the questions that follow.

A new study published in Science provides clear evidence of organic matter on Mars's surface. NASA's rover Curiosity collected the data, confirming earlier findings that Mars once had carbon-based compounds essential for life. These organic molecules were found in Gale Crater, an area that may have been a lake over three billion years ago. The rocks containing the organics also had sulfur, which might have preserved them despite harsh surface radiation. While the presence of organic molecules doesn't prove ancient life—since they could form through non-living processes—it's a significant discovery. About five years ago, Curiosity also detected methane, a basic organic molecule and natural gas component, in the Martian atmosphere. Methane only lasts a few hundred years, suggesting an unknown source replenishes it. Its levels fluctuate seasonally, possibly due to underground icy crystals releasing gas.

These findings indicate Mars is more active than thought and might be becoming more habitable. Future missions, like ESA's Exo Mars and NASA's Mars Rover in 2020, aim to explore the soil and atmosphere further, potentially answering if life ever existed on Mars.

SubQuestion No : 19

Q.19 Select the correct summary for the passage.

Ans

✗ 1. The passage details Mars Rover's technical instruments only.

✗ 2. Mars has no signs of organic material or past life.

✗ 3. Mars is too harsh for any organic matter to survive.

✓ 4. NASA's rover detected organic compounds on Mars, hinting at past life.

Question ID : **4410091524138**
Option 1 ID : **4410096019833**
Option 2 ID : **4410096019832**
Option 3 ID : **4410096019834**
Option 4 ID : **4410096019831**

QuickSarkari

Comprehension:

Read the passage and answer the questions that follow.

A new study published in Science provides clear evidence of organic matter on Mars's surface. NASA's rover Curiosity collected the data, confirming earlier findings that Mars once had carbon-based compounds essential for life. These organic molecules were found in Gale Crater, an area that may have been a lake over three billion years ago. The rocks containing the organics also had sulfur, which might have preserved them despite harsh surface radiation. While the presence of organic molecules doesn't prove ancient life—since they could form through non-living processes—it's a significant discovery. About five years ago, Curiosity also detected methane, a basic organic molecule and natural gas component, in the Martian atmosphere. Methane only lasts a few hundred years, suggesting an unknown source replenishes it. Its levels fluctuate seasonally, possibly due to underground icy crystals releasing gas.

These findings indicate Mars is more active than thought and might be becoming more habitable. Future missions, like ESA's Exo Mars and NASA's Mars Rover in 2020, aim to explore the soil and atmosphere further, potentially answering if life ever existed on Mars.

SubQuestion No : 20

Q.20 The passage's tone when describing future missions can best be described as:

Ans

✗ 1. Pessimistic

✗ 2. Dismissive

✓ 3. Optimistic

✗ 4. Apathetic

Question ID : **4410091524139**
Option 1 ID : **4410096019838**
Option 2 ID : **4410096019835**
Option 3 ID : **4410096019836**
Option 4 ID : **4410096019837**

Section : **Hindi Language and Comprehension**

Q.1 "आँखों में धूल झोंकना"- मुहावरे का क्या अर्थ है?

Ans

✗ 1. नज़रों से ओझल हो जाना

✓ 2. धोखा देना

✗ 3. गैर-कानूनी कार्य करना

✗ 4. हाथ की सफाई दिखाना

Question ID : **4410091618013**
Option 1 ID : **4410096390917**
Option 2 ID : **4410096390915**
Option 3 ID : **4410096390918**
Option 4 ID : **4410096390916**

QuickSarkari.com | WhatsApp Channel | Telegram: t.me/quick_sarkari

Q.2 निम्नलिखित विकल्पों में से रेखांकित शब्द का पर्यायवाची पहचानिए।
'प्रातः सूर्य की किरणों के स्पर्श से तालाब में खिला कमल और भी मनमोहक दिखाई देने लगा है।'

Ans
✗ 1. शुनक
✓ 2. सरसिज
✗ 3. अंशु
✗ 4. तुषार

Question ID : **4410091629820**
Option 1 ID : **4410096437368**
Option 2 ID : **4410096437366**
Option 3 ID : **4410096437367**
Option 4 ID : **4410096437365**

Q.3 अब मैं अनाथ हो गई हूँ ।
उपर्युक्त रेखांकित शब्द का विलोम क्या होगा ?

Ans
✗ 1. अकीर्ति
✗ 2. सदोष
✓ 3. सनाथ
✗ 4. निस्सीम

Question ID : **4410091624871**
Option 1 ID : **4410096418012**
Option 2 ID : **4410096418013**
Option 3 ID : **4410096418011**
Option 4 ID : **4410096418014**

Q.4 'गोद लिया हुआ लड़का' वाक्यांश के लिए सार्थक शब्द होगा -

Ans
✗ 1. दत्त
✗ 2. दगहा
✗ 3. दत्तचित्त
✓ 4. दत्तक

Question ID : **4410091304618**
Option 1 ID : **4410095150599**
Option 2 ID : **4410095150596**
Option 3 ID : **4410095150597**
Option 4 ID : **4410095150598**

QuickSarkari.com | WhatsApp Channel | Telegram: t.me/quick_sarkari

Q.5 उपयुक्त विशेषण का चयन कर दिए गए वाक्य को पूर्ण कीजिए।
दिलीप उस्मान से .....खाना खाता है ।

Ans
✗ 1. एक
✗ 2. पहला
✓ 3. तिगुना
✗ 4. प्रत्येक

Question ID : **4410091305179**
Option 1 ID : **4410095152779**
Option 2 ID : **4410095152778**
Option 3 ID : **4410095152777**
Option 4 ID : **4410095152780**

Q.6 'संकट के समय उसने ---------- सहायता की।' वाक्य के रिक्त स्थान के लिए क्रिया-विशेषण शब्द कौन-सा है?

Ans
✗ 1. बूढ़ों की
✓ 2. बहुत
✗ 3. गरीबों की
✗ 4. लोगों की

Question ID : **4410091278337**
Option 1 ID : **4410095045298**
Option 2 ID : **4410095045297**
Option 3 ID : **4410095045296**
Option 4 ID : **4410095045295**

Q.7 'अत्यंत प्रसन्न होना' अर्थ के लिए सही मुहावरा क्या है?

Ans
✗ 1. मीठी छुरी चलाना
✗ 2. बेपेंदी का लोटा
✗ 3. नाक भौं चढ़ाना
✓ 4. बाछें खिल जाना

Question ID : **4410091626107**
Option 1 ID : **4410096422835**
Option 2 ID : **4410096422836**
Option 3 ID : **4410096422834**
Option 4 ID : **4410096422833**

QuickSarkari.com | WhatsApp Channel | Telegram: t.me/quick_sarkari

Q.8 निम्नलिखित वाक्यांशों को उचित क्रम में लगाकर एक शुद्ध वाक्य बनाइए:
1- जिस संज्ञा या सर्वनाम
2- प्रकट की जाती है
3- शब्द की विशेषता
4- उसे विशेष्य कहते हैं

Ans
✗ 1. 4, 3, 1, 2
✗ 2. 2, 3, 1, 4
✓ 3. 1, 3, 2, 4
✗ 4. 3, 4, 2, 1

Question ID : **4410095573 61**
Option 1 ID : **4410092184745**
Option 2 ID : **4410092184748**
Option 3 ID : **4410092184746**
Option 4 ID : **4410092184747**

Q.9 निम्न में से 'एक तो करेला कड़ुआ, दूसरे नीम चढ़ा' लोकोक्ति का सही अर्थ कौन-सा है ?

Ans
✗ 1. निकम्मा आदमी बातूनी होता है
✗ 2. जैसा करोगे वैसा पाओगे
✓ 3. कुसंग में पड़कर और बुरा होना
✗ 4. एक वस्तु और चाहने वाले अनेक

Question ID : **4410091626417**
Option 1 ID : **4410096424045**
Option 2 ID : **4410096424044**
Option 3 ID : **4410096424046**
Option 4 ID : **4410096424047**

Q.10 निम्नलिखित वाक्य के रिक्त स्थान में उचित परिमाणवाचक क्रिया-विशेषण शब्द का प्रयोग करें -
'बच्चे को पीने के लिए दूध दे दो।'

Ans
✗ 1. अत्यंत
✗ 2. आगे
✗ 3. ठीक
✓ 4. थोड़ा

Question ID : **4410091242706**
Option 1 ID : **4410094904168**
Option 2 ID : **4410094904167**
Option 3 ID : **4410094904169**
Option 4 ID : **4410094904170**

QuickSarkari.com | WhatsApp Channel | Telegram: t.me/quick_sarkari

Q.11 निम्न में से वाक्य में रेखांकित शब्द का विलोम शब्द कौन-सा है ?
'मेरा पड़ोसी बहुत ही अनुदार व्यक्ति है।'

Ans
✗ 1. सुधार
✗ 2. ऊसर
✓ 3. उदार
✗ 4. कुटज

Question ID : **4410091626541**
Option 1 ID : **4410096424536**
Option 2 ID : **4410096424538**
Option 3 ID : **4410096424539**
Option 4 ID : **4410096424537**

Q.12 निम्नलिखित विकल्पों में से रेखांकित शब्द का विलोम पहचानिए।
'मेरा स्पष्ट मानना है कि जो व्यक्ति दूसरों की निंदा में समय नष्ट नहीं करता, वही अपने जीवन में आगे बढ़ता है।'

Ans
✓ 1. स्तुति
✗ 2. श्रुति
✗ 3. नत
✗ 4. विनत

Question ID : **4410091629912**
Option 1 ID : **4410096437735**
Option 2 ID : **4410096437736**
Option 3 ID : **4410096437733**
Option 4 ID : **4410096437734**

Q.13 'उखड़े बाल ना और नाम बलवंत सिंह' लोकोक्ति का सही अर्थ क्या है ?

Ans
✓ 1. नाम के अनुरूप गुण का नहीं होना
✗ 2. दर-बदर होना
✗ 3. अव्यवहारिक बात करना
✗ 4. महाशक्तिशाली होना

Question ID : **4410091629447**
Option 1 ID : **4410096435874**
Option 2 ID : **4410096435875**
Option 3 ID : **4410096435877**
Option 4 ID : **4410096435876**

QuickSarkari.com | WhatsApp Channel | Telegram: t.me/quick_sarkari

Q.14 उचित क्रिया विशेषण शब्द से वाक्य पूरा कीजिए।
'वह _____ जाएगा।'

Ans
✗ 1. अतिशय
✗ 2. थोड़ा
✓ 3. बिल्कुल
✗ 4. प्रत्यक्ष

Question ID : **4410091288649**
Option 1 ID : **4410095086468**
Option 2 ID : **4410095086469**
Option 3 ID : **4410095086466**
Option 4 ID : **4410095086467**

Q.15 ''जब तक वर्षा नहीं_____ किसान खेती शुरू नहीं करेंगे।'' रिक्त स्थान की पूर्ति उचित क्रिया शब्द से करें।

Ans
✗ 1. हो
✗ 2. होती
✓ 3. होगी
✗ 4. हुए

Question ID : **4410091288105**
Option 1 ID : **4410095084282**
Option 2 ID : **4410095084281**
Option 3 ID : **4410095084280**
Option 4 ID : **4410095084283**

Comprehension:

नीचे दिए गए परिच्छेद को ध्यानपूर्वक पढ़ें और उसके आधार पर पूछे गए प्रश्नों के उत्तर दें।
भारत में नाटक साहित्य की एक ऐसी विधा है, जिसकी लंबी परंपरा पाई जाती है। भारत में ही नाट्यशास्त्र की रचना सबसे पहले हुई। यहाँ नाट्यशास्त्र के अनेक आचार्य हुए, जिन्होंने नाटक पर बड़े विस्तार और गंभीरता से इस विधा पर विचार किया है। इनमें भरत, धनंजय, रामचंद्र-गुणचंद्र, अभिनवगुप्त, विश्वनाथ आदि के नाम अधिक प्रसिद्ध हैं। आचार्य धनंजय ने नाटक की परिभाषा इस प्रकार बताई है- अवस्था की अनुकृति नाटक है। यह परिभाषा सार्थक, व्यावहारिक और उपयोगी है। नाटक में अनुकरण तत्त्व की प्रधानता है। साहित्य की सभी विधाओं में नाटक ही वह विधा है, जिसमें अनुकरण पर सर्वाधिक बल दिया गया है। यह अनुकरण किसका होता है? उत्तर है- कार्य, अर्थात मानवीय जीवन के क्रियाशील कार्यों का। मनुष्य अनेक परिस्थितियों से हर क्षण गुजरता है। उसकी विभिन्न अवस्थाएँ होती हैं। भिन्न-भिन्न अवस्थाओं में रहने के कारण उसके जीवन-रंगमंच पर अनेक दृश्य (स्थितियाँ) आते-जाते रहते हैं। नाटककार नाटक की रचना करते समय इन्हीं स्थितियों का अनुकरण करता है। नाटक में जीवन का यथार्थमूलक अनुकरण होते हुए भी नाटककार सर्जनात्मक कल्पना करता है। यही कल्पना नाटक को साहित्य की विधा प्रदान करती है। इसलिए नाटक एक ऐसी कला है, जिसमें अनुकरण और कल्पना दोनों का योग रहता है। इसका उद्देश्य पहले शिक्षण और मनोरंजन था।

SubQuestion No : 16

Q.16 भारत में नाटक साहित्य की परंपरा के संदर्भ में कौन-सा कथन सही है?

Ans
✓ 1. नाट्यशास्त्र की रचना सर्वप्रथम भारत में हुई।
✗ 2. भारत में नाटक साहित्य का विकास मध्यकाल में हुआ।
✗ 3. नाटक साहित्य की परंपरा भारत में अल्पकालिक रही।
✗ 4. भारत में नाटक का विकास केवल संस्कृत तक सीमित रहा।

Question ID : **4410091627902**
Option 1 ID : **4410096429795**
Option 2 ID : **4410096429794**
Option 3 ID : **4410096429797**
Option 4 ID : **4410096429796**

Comprehension:

नीचे दिए गए परिच्छेद को ध्यानपूर्वक पढ़ें और उसके आधार पर पूछे गए प्रश्नों के उत्तर दें।
भारत में नाटक साहित्य की एक ऐसी विधा है, जिसकी लंबी परंपरा पाई जाती है। भारत में ही नाट्यशास्त्र की रचना सबसे पहले हुई। यहाँ नाट्यशास्त्र के अनेक आचार्य हुए, जिन्होंने नाटक पर बड़े विस्तार और गंभीरता से इस विधा पर विचार किया है। इनमें भरत, धनंजय, रामचंद्र-गुणचंद्र, अभिनवगुप्त, विश्वनाथ आदि के नाम अधिक प्रसिद्ध हैं। आचार्य धनंजय ने नाटक की परिभाषा इस प्रकार बताई है- अवस्था की अनुकृति नाटक है। यह परिभाषा सार्थक, व्यावहारिक और उपयोगी है। नाटक में अनुकरण तत्त्व की प्रधानता है। साहित्य की सभी विधाओं में नाटक ही वह विधा है, जिसमें अनुकरण पर सर्वाधिक बल दिया गया है। यह अनुकरण किसका होता है? उत्तर है- कार्य, अर्थात मानवीय जीवन के क्रियाशील कार्यों का। मनुष्य अनेक परिस्थितियों से हर क्षण गुजरता है। उसकी विभिन्न अवस्थाएँ होती हैं। भिन्न-भिन्न अवस्थाओं में रहने के कारण उसके जीवन-रंगमंच पर अनेक दृश्य (स्थितियाँ) आते-जाते रहते हैं। नाटककार नाटक की रचना करते समय इन्हीं स्थितियों का अनुकरण करता है। नाटक में जीवन का यथार्थमूलक अनुकरण होते हुए भी नाटककार सर्जनात्मक कल्पना करता है। यही कल्पना नाटक को साहित्य की विधा प्रदान करती है। इसलिए नाटक एक ऐसी कला है, जिसमें अनुकरण और कल्पना दोनों का योग रहता है। इसका उद्देश्य पहले शिक्षण और मनोरंजन था।

SubQuestion No : 17

Q.17 निम्नलिखित में से नाटक पर विचार करने वाले प्रमुख आचार्यों में कौन-सा नाम गद्यांश में उल्लिखित नहीं है?

Ans

✗ 1. भरत

✓ 2. मम्मट

✗ 3. अभिनवगुप्त

✗ 4. धनंजय

Question ID : **4410091627903**
Option 1 ID : **4410096429798**
Option 2 ID : **4410096429801**
Option 3 ID : **4410096429800**
Option 4 ID : **4410096429799**

Comprehension:

नीचे दिए गए परिच्छेद को ध्यानपूर्वक पढ़ें और उसके आधार पर पूछे गए प्रश्नों के उत्तर दें।
भारत में नाटक साहित्य की एक ऐसी विधा है, जिसकी लंबी परंपरा पाई जाती है। भारत में ही नाट्यशास्त्र की रचना सबसे पहले हुई। यहाँ नाट्यशास्त्र के अनेक आचार्य हुए, जिन्होंने नाटक पर बड़े विस्तार और गंभीरता से इस विधा पर विचार किया है। इनमें भरत, धनंजय, रामचंद्र-गुणचंद्र, अभिनवगुप्त, विश्वनाथ आदि के नाम अधिक प्रसिद्ध हैं। आचार्य धनंजय ने नाटक की परिभाषा इस प्रकार बताई है- अवस्था की अनुकृति नाटक है। यह परिभाषा सार्थक, व्यावहारिक और उपयोगी है। नाटक में अनुकरण तत्त्व की प्रधानता है। साहित्य की सभी विधाओं में नाटक ही वह विधा है, जिसमें अनुकरण पर सर्वाधिक बल दिया गया है। यह अनुकरण किसका होता है? उत्तर है- कार्य, अर्थात मानवीय जीवन के क्रियाशील कार्यों का। मनुष्य अनेक परिस्थितियों से हर क्षण गुजरता है। उसकी विभिन्न अवस्थाएँ होती हैं। भिन्न-भिन्न अवस्थाओं में रहने के कारण उसके जीवन-रंगमंच पर अनेक दृश्य (स्थितियाँ) आते-जाते रहते हैं। नाटककार नाटक की रचना करते समय इन्हीं स्थितियों का अनुकरण करता है। नाटक में जीवन का यथार्थमूलक अनुकरण होते हुए भी नाटककार सर्जनात्मक कल्पना करता है। यही कल्पना नाटक को साहित्य की विधा प्रदान करती है। इसलिए नाटक एक ऐसी कला है, जिसमें अनुकरण और कल्पना दोनों का योग रहता है। इसका उद्देश्य पहले शिक्षण और मनोरंजन था।

SubQuestion No : 18

Q.18 आचार्य धनंजय के अनुसार नाटक की परिभाषा क्या है?

Ans

✗ 1. कल्पना और यथार्थ का समन्वय

✓ 2. अवस्था की अनुकृति

✗ 3. रस की अनुभूति कराने वाली विधा

✗ 4. जीवन की कलात्मक अभिव्यक्ति

Question ID : **4410091627904**
Option 1 ID : **4410096429805**
Option 2 ID : **4410096429804**
Option 3 ID : **4410096429802**
Option 4 ID : **4410096429803**

Comprehension:

नीचे दिए गए परिच्छेद को ध्यानपूर्वक पढ़ें और उसके आधार पर पूछे गए प्रश्नों के उत्तर दें।
भारत में नाटक साहित्य की एक ऐसी विधा है, जिसकी लंबी परंपरा पाई जाती है। भारत में ही नाट्यशास्त्र की रचना सबसे पहले हुई। यहाँ नाट्यशास्त्र के अनेक आचार्य हुए, जिन्होंने नाटक पर बड़े विस्तार और गंभीरता से इस विधा पर विचार किया है। इनमें भरत, धनंजय, रामचंद्र-गुणचंद्र, अभिनवगुप्त, विश्वनाथ आदि के नाम अधिक प्रसिद्ध हैं। आचार्य धनंजय ने नाटक की परिभाषा इस प्रकार बताई है- अवस्था की अनुकृति नाटक है। यह परिभाषा सार्थक, व्यावहारिक और उपयोगी है। नाटक में अनुकरण तत्त्व की प्रधानता है। साहित्य की सभी विधाओं में नाटक ही वह विधा है, जिसमें अनुकरण पर सर्वाधिक बल दिया गया है। यह अनुकरण किसका होता है? उत्तर है- कार्य, अर्थात मानवीय जीवन के क्रियाशील कार्यों का। मनुष्य अनेक परिस्थितियों से हर क्षण गुजरता है। उसकी विभिन्न अवस्थाएँ होती हैं। भिन्न-भिन्न अवस्थाओं में रहने के कारण उसके जीवन-रंगमंच पर अनेक दृश्य (स्थितियाँ) आते-जाते रहते हैं। नाटककार नाटक की रचना करते समय इन्हीं स्थितियों का अनुकरण करता है। नाटक में जीवन का यथार्थमूलक अनुकरण होते हुए भी नाटककार सर्जनात्मक कल्पना करता है। यही कल्पना नाटक को साहित्य की विधा प्रदान करती है। इसलिए नाटक एक ऐसी कला है, जिसमें अनुकरण और कल्पना दोनों का योग रहता है। इसका उद्देश्य पहले शिक्षण और मनोरंजन था।

SubQuestion No : 19

Q.19 साहित्य की सभी विधाओं में नाटक को विशिष्ट बनाने वाला प्रमुख तत्त्व कौन-सा है?

Ans

✗ 1. संवाद

✓ 2. कल्पना

✗ 3. अनुकरण

✗ 4. रस

Question ID : **4410091627905**
Option 1 ID : **4410096429808**
Option 2 ID : **4410096429807**
Option 3 ID : **4410096429809**
Option 4 ID : **4410096429806**

Comprehension:

नीचे दिए गए परिच्छेद को ध्यानपूर्वक पढ़ें और उसके आधार पर पूछे गए प्रश्नों के उत्तर दें।
भारत में नाटक साहित्य की एक ऐसी विधा है, जिसकी लंबी परंपरा पाई जाती है। भारत में ही नाट्यशास्त्र की रचना सबसे पहले हुई। यहाँ नाट्यशास्त्र के अनेक आचार्य हुए, जिन्होंने नाटक पर बड़े विस्तार और गंभीरता से इस विधा पर विचार किया है। इनमें भरत, धनंजय, रामचंद्र-गुणचंद्र, अभिनवगुप्त, विश्वनाथ आदि के नाम अधिक प्रसिद्ध हैं। आचार्य धनंजय ने नाटक की परिभाषा इस प्रकार बताई है- अवस्था की अनुकृति नाटक है। यह परिभाषा सार्थक, व्यावहारिक और उपयोगी है। नाटक में अनुकरण तत्त्व की प्रधानता है। साहित्य की सभी विधाओं में नाटक ही वह विधा है, जिसमें अनुकरण पर सर्वाधिक बल दिया गया है। यह अनुकरण किसका होता है? उत्तर है- कार्य, अर्थात मानवीय जीवन के क्रियाशील कार्यों का। मनुष्य अनेक परिस्थितियों से हर क्षण गुजरता है। उसकी विभिन्न अवस्थाएँ होती हैं। भिन्न-भिन्न अवस्थाओं में रहने के कारण उसके जीवन-रंगमंच पर अनेक दृश्य (स्थितियाँ) आते-जाते रहते हैं। नाटककार नाटक की रचना करते समय इन्हीं स्थितियों का अनुकरण करता है। नाटक में जीवन का यथार्थमूलक अनुकरण होते हुए भी नाटककार सर्जनात्मक कल्पना करता है। यही कल्पना नाटक को साहित्य की विधा प्रदान करती है। इसलिए नाटक एक ऐसी कला है, जिसमें अनुकरण और कल्पना दोनों का योग रहता है। इसका उद्देश्य पहले शिक्षण और मनोरंजन था।

SubQuestion No : 20

Q.20 गद्यांश के अनुसार नाटक को साहित्य की विधा बनाने वाला प्रमुख कारण क्या है?

Ans

✓ 1. अनुकरण के साथ सर्जनात्मक कल्पना का योग

✗ 2. केवल मनोरंजन का उद्देश्य

✗ 3. केवल यथार्थ का चित्रण

✗ 4. शिक्षण की प्रधानता

Question ID : **4410091627906**
Option 1 ID : **4410096429810**
Option 2 ID : **4410096429812**
Option 3 ID : **4410096429811**
Option 4 ID : **4410096429813**

Section : **Discipline1**

Q.1 **If a curriculum is described as a plan for learning that translates the vision of planners into learning experiences, what key elements must be present?**

Ans

✗ 1. Cultural events, sports activities, and student clubs

✓ 2. Purpose, definite structure, and learning experiences

✗ 3. Library resources, cafeteria services, and transportation

✗ 4. Schedule, study materials, and grading policy

Question ID : **4410091640518**
Option 1 ID : **4410096479273**
Option 2 ID : **4410096479271**
Option 3 ID : **4410096479274**
Option 4 ID : **4410096479272**

Q.2 **If a society only allows sons to inherit property despite laws for equality, which type of gender inequality does this represent?**

Ans

✓ 1. Ownership inequality

✗ 2. Natality inequality

✗ 3. Household inequality

✗ 4. Professional inequality

Question ID : **4410091679321**
Option 1 ID : **4410096625474**
Option 2 ID : **4410096625476**
Option 3 ID : **4410096625473**
Option 4 ID : **4410096625475**

Q.3 **एक पूर्व-विद्यालयी शिक्षिका देखती है कि रिया अपनी शर्ट के बटन लगा सकती है लेकिन उसे एक पैर पर कूदने में उसे कठिनाई होती है। यह क्या इंगित करता है?**

Ans

✓ 1. सूक्ष्म गत्यात्मक कौशल, स्थूल गत्यात्मक कौशलों की तुलना में अधिक विकसित हैं।

✗ 2. अल्पविकसित संवेदी एकीकरण जिसके कारण द्विपक्षीय संभ्रम होता है।

✗ 3. संज्ञानात्मक अनुक्रमण क्षमताओं में देरी गत्यात्मक समन्वय को प्रभावित कर रही है।

✗ 4. भाषा-मध्यस्थ गत्यात्मक नियोजन की अपर्याप्त परिपक्वता

Question ID : **4410091551672**
Option 1 ID : **4410096129323**
Option 2 ID : **4410096129325**
Option 3 ID : **4410096129324**
Option 4 ID : **4410096129326**

QuickSarkari

Q.4 एक विद्यालय अपने पाठ्यचर्या को संशोधित कर रहा है ताकि वह मुख्य शैक्षणिक मानकों को पूरा करने के साथ-साथ अपने विद्यार्थियों की विविध सांस्कृतिक पृष्ठभूमियों को बेहतर ढंग से समझ सके। इस परिदृश्य में पाठ्यचर्या की अवधारणा और आवश्यकता के प्रति प्रभावी अनुक्रिया को कौन-सा उपागम सर्वोत्तम रूप से प्रदर्शित करता है?

Ans

✗ 1. पाठ्यचर्या को केवल मानकीकृत परीक्षण आवश्यकताओं पर केंद्रित करना

✗ 2. प्रत्येक समूह के लिए अलग-अलग बहुसांस्कृतिक मॉड्यूल डिजाइन करना

✓ 3. मानक अधिगम उद्देश्यों में बहुसांस्कृतिक विषयवस्तु का एकीकरण करना

✗ 4. बहुसांस्कृतिक विषयवस्तु के समावेश के लिए शैक्षणिक विषयवस्तु को कम करना

Question ID : **4410091621801**
Option 1 ID : **4410096406010**
Option 2 ID : **4410096406009**
Option 3 ID : **4410096406008**
Option 4 ID : **4410096406011**

Q.5 आरटीई अधिनियम की धारा 4 के अंतर्गत किन संस्थानों को विद्यालय से बाहर रहने वाले बच्चों (out-of-school children) को उनकी आयु के अनुसार उपयुक्त कक्षाओं में प्रवेश देना अनिवार्य है?

Ans

✗ 1. देश के सभी विद्यालय

✗ 2. निजी गैर-सहायता प्राप्त संस्थान

✓ 3. सरकारी और स्थानीय विद्यालय

✗ 4. निजी सहायता प्राप्त संस्थान

Question ID : **4410091611366**
Option 1 ID : **4410096364322**
Option 2 ID : **4410096364319**
Option 3 ID : **4410096364321**
Option 4 ID : **4410096364320**

Q.6 1976 में 42वें संशोधन द्वारा प्रस्तावना में कौन-से दो मार्गदर्शक सिद्धांत जोड़े गए थे?

Ans

✗ 1. संप्रभु और लोकतांत्रिक

✓ 2. समाजवादी और पंथनिरपेक्ष

✗ 3. पंथनिरपेक्ष और गणराज्य

✗ 4. लोकतांत्रिक और गणराज्य

Question ID : **4410091631370**
Option 1 ID : **4410096443704**
Option 2 ID : **4410096443706**
Option 3 ID : **4410096443705**
Option 4 ID : **4410096443707**

QuickSarkari

Q.7 पूर्व-विद्यालय (preschool) की कौन-सी सीमाबंधन किसी अन्य के दृष्टिकोण को समझने में बाधा डालती है?

Ans

✗ 1. संरक्षण तर्क (Conservation logic)

✓ 2. अहंकेंद्रवाद (Egocentrism)

✗ 3. परिकल्पित विचार (Hypothetical thoughts)

✗ 4. विकेंद्रीयन (Decentration)

Question ID : **4410091556577**
Option 1 ID : **4410096148885**
Option 2 ID : **4410096148882**
Option 3 ID : **4410096148884**
Option 4 ID : **4410096148883**

Q.8 बच्चे किस अवस्था में नियमों को समझना और उनका पालन करना शुरू करते हैं क्योंकि वे सामाजिक व्यवस्था बनाए रखना चाहते हैं और दूसरों से स्वीकृति प्राप्त करना चाहते हैं?

Ans

✗ 1. उत्तर-परंपरागत अवस्था (Post-conventional stage)

✗ 2. पूर्व-परंपरागत अवस्था (Pre-conventional stage)

✗ 3. स्वायत्त अवस्था (Autonomous stage)

✓ 4. परंपरागत अवस्था (conventional stage)

Question ID : **4410091645810**
Option 1 ID : **4410096499764**
Option 2 ID : **4410096499762**
Option 3 ID : **4410096499765**
Option 4 ID : **4410096499763**

Q.9 भारतीय संविधान का कौन-सा अनुच्छेद प्राथमिक स्तर पर मातृभाषा में शिक्षण प्रदान करने की सुविधा देता है?

Ans

✗ 1. अनुच्छेद 14A

✓ 2. अनुच्छेद 350A

✗ 3. अनुच्छेद 22B

✗ 4. अनुच्छेद 12B

Question ID : **4410091570146**
Option 1 ID : **4410096201582**
Option 2 ID : **4410096201584**
Option 3 ID : **4410096201583**
Option 4 ID : **4410096201581**

QuickSarkari.com | WhatsApp Channel | Telegram: t.me/quick_sarkari

Q.10 बुलिंग (bullying) की आवर्ती घटनाओं को देखने के बाद, एक विद्यालय परामर्शदाता तदुनभूति-निर्माण और आत्म-नियंत्रण की गतिविधियाँ शुरू करता है, जो बौद्ध और इस्लामी परंपराओं से प्रेरित हैं। शांति शिक्षा के किस आयाम पर बल दिया जा रहा है?

Ans

✗ 1. अनुशासनात्मक उपायों का सख्ती से प्रवर्तन

✗ 2. अनुपालन के लिए भौतिक प्रोत्साहन

✗ 3. अकादमिक प्रगति के लिए प्रौद्योगिकीय प्रवीणता

✓ 4. आंतरिक सद्भाव के लिए नैतिक और आध्यात्मिक विकास

Question ID : **4410091629052**
Option 1 ID : **4410096434352**
Option 2 ID : **4410096434353**
Option 3 ID : **4410096434351**
Option 4 ID : **4410096434350**

Q.11 जब अधिक लोग ऐसी नौकरी में लगे होते हैं जिसमें वास्तव में कम संख्या में लोगों की आवश्यकता होती है, तो उसे क्या कहते है?

Ans

✗ 1. पूर्ण बेरोजगारी (Complete unemployment)

✗ 2. आंशिक बेरोजगारी (Partial unemployment)

✗ 3. शुद्ध बेरोजगारी (Pure unemployment)

✓ 4. प्रच्छन्न बेरोजगारी (Disguised unemployment)

Question ID : **4410091570133**
Option 1 ID : **4410096201534**
Option 2 ID : **4410096201535**
Option 3 ID : **4410096201536**
Option 4 ID : **4410096201533**

Q.12 5 वर्षीय बालक रोहन फुटबॉल खेल रहा है। इस संदर्भ में कौन-सा पेशीय कौशल, प्रदर्शित किया जा रहा है?

Ans

✓ 1. सकल पेशीय कौशल (Gross motor skill)

✗ 2. सीमित पेशीय कौशल (Limited motor skill)

✗ 3. स्थूल पेशीय कौशल (Lite motor skill)

✗ 4. सूक्ष्म पेशीय कौशल (Fine motor skill)

Question ID : **4410091570037**
Option 1 ID : **4410096201149**
Option 2 ID : **4410096201152**
Option 3 ID : **4410096201150**
Option 4 ID : **4410096201151**

QuickSarkari

Q.13 एक पियाजे अवस्था से दूसरी पियाजे अवस्था में संक्रमण को सर्वोत्तम तरीके से _____ के रूप में वर्णित किया जा सकता है।

Ans

✗ 1. परिवेशी निवेश द्वारा पूरी तरह से निर्धारित करने

✗ 2. अचानक और परीक्षा के अंकों पर निर्भर

✗ 3. केवल भाषाई विकास पर निर्भर

✓ 4. व्यक्तियों के बीच परिवर्ती लेकिन अनुक्रमिक

Question ID : **4410091572113**
Option 1 ID : **4410096209470**
Option 2 ID : **4410096209468**
Option 3 ID : **4410096209471**
Option 4 ID : **4410096209469**

Q.14 निम्नलिखित में से कौन-सा, पाठ्यचर्या विकास का मूल सिद्धांत है?

Ans

✗ 1. सामाजिक संदर्भ की उपेक्षा करना

✓ 2. शिक्षार्थियों की आवश्यकताओं के लिए प्रासंगिकता

✗ 3. टॉपिक का यादृच्छिक चयन

✗ 4. केवल शिक्षकों की अभिरुचियों पर बल देना

Question ID : **4410091606253**
Option 1 ID : **4410096344038**
Option 2 ID : **4410096344037**
Option 3 ID : **4410096344036**
Option 4 ID : **4410096344039**

Q.15 एक शिक्षक ने देखा कि एक विद्यार्थी, जो पहले से समूह कार्य में आत्मविश्वास से भरा था, हाल ही में सहपाठियों के साथ बारंबार नकारात्मक अंत:क्रिया के बाद विमुख हो गया है। इस परिदृश्य के आधार पर, विद्यार्थी के व्यक्तित्व विकास को कौन-सा सामाजिक कारक सबसे अधिक प्रभावित कर रहा है?

Ans

✗ 1. भाई-बहन की प्रतिद्वंद्विता के कारण असुरक्षा उत्पन्न होना

✗ 2. स्वभाव को प्रभावित करने वाले जन्मपूर्व कारक

✓ 3. सहपाठी अस्वीकरण के परिणामस्वरुप विरक्ति

✗ 4. आत्मविश्वास वर्धक प्रभावशाली पालन-पोषण

Question ID : **4410091612726**
Option 1 ID : **4410096369751**
Option 2 ID : **4410096369753**
Option 3 ID : **4410096369750**
Option 4 ID : **4410096369752**

QuickSarkari.com | WhatsApp Channel | Telegram: t.me/quick_sarkari

Q.16 भारत में माध्यमिक शिक्षा की समीक्षा के लिए 1952-53 में किस आयोग की स्थापना की गई थी?

Ans
✔ 1. मुदालियर आयोग
✘ 2. राधाकृष्णन आयोग
✘ 3. कोठारी आयोग
✘ 4. हंटर आयोग

Question ID : **4410091626460**
Option 1 ID : **4410096424214**
Option 2 ID : **4410096424212**
Option 3 ID : **4410096424213**
Option 4 ID : **4410096424215**

Q.17 कौन-सा कथन आधुनिक शिक्षा में पाठ्यचर्या की मूल अवधारणा को सर्वोत्तम रूप से दर्शाता है?

Ans
✘ 1. प्रति सत्र पढ़ाए जाने वाले इकाइयों और उप-इकाइयों का एक निश्चित क्रम
✔ 2. अधिगमकर्ता के लिए संपूर्ण अधिगम अनुभवों की एक संरचित योजना
✘ 3. किसी ग्रेड के लिए निर्धारित विषय अध्यायों की सूची
✘ 4. किसी संस्थान द्वारा प्राधिकृत पाठ्यपुस्तकों का संकलन

Question ID : **4410091572449**
Option 1 ID : **4410096210734**
Option 2 ID : **4410096210733**
Option 3 ID : **4410096210732**
Option 4 ID : **4410096210735**

Q.18 मनोवैज्ञानिक अध्ययनों में व्यक्तित्व को अन्य विशेषताओं से क्या अलग बनाता है?

Ans
✔ 1. जैविक और मनोवैज्ञानिक घटनाओं की अन्योन्यक्रिया
✘ 2. समूह गतिशीलता पर ध्यान केंद्रित करना
✘ 3. शारीरिक प्रतीति को महत्व
✘ 4. वैयक्तिक विभिन्नताओं की अवहेलना

Question ID : **4410091648456**
Option 1 ID : **4410096510052**
Option 2 ID : **4410096510054**
Option 3 ID : **4410096510053**
Option 4 ID : **4410096510055**

Q.19 कक्षा में रेहान हमेशा समय पर असाइनमेंट पूरा करता है और अपने कार्य को ध्यानपूर्वक व्यवस्थित करता है। बिग फाइव मॉडल (Big Five model) का प्रयोग करते हुए, व्यक्तित्व का कौन-सा आयाम रेहान के व्यवहार का सर्वोत्तम ढंग से वर्णन करता है?

Ans
✘ 1. अधिक खुलापन (High openness)
✔ 2. उच्च अंतर्विवेकशीलता (High conscientiousness)
✘ 3. उच्च मनस्तापीयता (High neuroticism)
✘ 4. उच्च सहमतिकारिता (High agreeableness)

Question ID : **4410091612718**
Option 1 ID : **4410096369723**
Option 2 ID : **4410096369724**
Option 3 ID : **4410096369722**
Option 4 ID : **4410096369725**

Q.20 1950 के दशक के बाद स्थापित एक माध्यमिक विद्यालय के प्रधानाचार्य को ऐसी भाषा शिक्षण नीति अंगीकृत करनी होगी जो सांस्कृतिक विविधता को संरक्षित करते हुए राष्ट्रीय एकता को प्रोत्साहित करने का कार्य करे। प्रधानाचार्य को उत्तरवर्ती शिक्षण नीतियों द्वारा समर्थित कौन-सी संवैधानिक कार्यनीति का समर्थन करना चाहिए?

Ans
✗ 1. अंग्रेजी माध्यम के शिक्षण को प्राथमिकता देना
✓ 2. त्रि-भाषा सूत्र को कार्यान्वित करना
✗ 3. संघीय राजभाषा में अनिवार्य शिक्षा
✗ 4. क्षेत्रीय भाषा में शिक्षण को समाप्त करना

Question ID : **4410091549625**
Option 1 ID : **4410096121204**
Option 2 ID : **4410096121202**
Option 3 ID : **4410096121201**
Option 4 ID : **4410096121203**

Section : **Discipline2**

Q.1 Which model focuses on using literature to teach specific vocabulary and structural elements?

Ans
✓ 1. The Language Model.
✗ 2. The Scientific Model.
✗ 3. The Personal Growth Model.
✗ 4. The Cultural Model.

Question ID : **4410091654905**
Option 1 ID : **4410096534586**
Option 2 ID : **4410096534588**
Option 3 ID : **4410096534587**
Option 4 ID : **4410096534585**

Q.2 निम्नलिखित में से कौन-सा परिदृश्य, प्रारंभिक कक्षागत परिवेश में प्रभावी सहपाठी अनुशिक्षण की सर्वोत्तम व्याख्या करता है?

Ans
✗ 1. शिक्षक संघर्षरत विद्यार्थियों को अतिरिक्त गृहकार्य दे रहे हैं।
✗ 2. अभिभावक कक्षागत प्रबंधन में सहायता के लिए स्वेच्छा से कार्य कर रहे हैं।
✗ 3. विद्यार्थी स्वतंत्र रूप से कार्यपत्रकों पर कार्य कर रहे हैं।
✓ 4. बड़े विद्यार्थी, छोटे शिष्यों को पठन बोध में मार्गदर्शन कर रहे हैं।

Question ID : **4410091638547**
Option 1 ID : **4410096471871**
Option 2 ID : **4410096471872**
Option 3 ID : **4410096471873**
Option 4 ID : **4410096471870**

QuickSarkari.com | WhatsApp Channel | Telegram: t.me/quick_sarkari

Q.3 अवलोकन अधिगम से दैनिक जीवन में आत्म-बोध विकसित करने में कैसे मदद मिलती है?

Ans

✗ 1. यह केवल पिछली उपलब्धियों पर निर्भर करता है।

✗ 2. यह केवल दूसरों से अनुमोदन लेने के लिए प्रोत्साहित करता है।

✗ 3. यह नए अनुभवों से बचने को बढ़ावा देता है।

✓ 4. यह व्यक्तिगत प्रतिरूपों और प्रतिक्रियाओं की पहचान करने में मदद करता है।

Question ID : **4410091624648**
Option 1 ID : **4410096417126**
Option 2 ID : **4410096417124**
Option 3 ID : **4410096417125**
Option 4 ID : **4410096417123**

Q.4 स्नातक शिक्षा में अनुभवात्मक अधिगम को कौन-सी पद्धति सर्वोत्तम रूप से सहायता प्रदान करती है?

Ans

✓ 1. समस्या समाधान में संलग्न होना

✗ 2. दिए गए लेख को पढ़ना

✗ 3. नियमित रूप से व्याख्यानों में उपस्थित होना

✗ 4. शिक्षक के नोट्स की नकल करना

Question ID : **4410091608046**
Option 1 ID : **4410096351120**
Option 2 ID : **4410096351123**
Option 3 ID : **4410096351121**
Option 4 ID : **4410096351122**

Q.5 निम्नलिखित में से किसे समाजीकरण का कारक नहीं माना जाता है?

Ans

✗ 1. समुदाय

✗ 2. विद्यालय

✓ 3. आनुवंशिकता

✗ 4. परिवार

Question ID : **4410091572029**
Option 1 ID : **4410096209142**
Option 2 ID : **4410096209141**
Option 3 ID : **4410096209140**
Option 4 ID : **4410096209139**

Q.6 प्राथमिक स्तर पर गणित शिक्षा का मुख्य उद्देश्य क्या होता है?

Ans

✗ 1. लिखावट में सुधार करना

✗ 2. गुणन तालिकाओं को याद रखना

✓ 3. तर्क कौशल विकसित करना

✗ 4. केवल जोड़ पर फोकस करना

Question ID : **4410091704563**
Option 1 ID : **4410096723314**
Option 2 ID : **4410096723317**
Option 3 ID : **4410096723316**
Option 4 ID : **4410096723315**

Quick Sarkari

Q.7 निम्नलिखित में से कौन-सा, कक्षा में सचेतनता को बढ़ावा देने के लिए उपयुक्त अभ्यास नहीं है?

Ans

✗ 1. प्रत्येक कक्षा की शुरुआत उपयुक्त माहौल के साथ करना

✓ 2. सचेत और गैर-सचेत विद्यार्थियों को पृथक करना

✗ 3. अपनी कक्षा की गति और मनोदशा तय करने में अपनी भूमिका के प्रति अवगत रहना

✗ 4. प्रत्येक कक्षा की शुरुआत कम से कम निर्देशित सचेतन के कुछ क्षणों के साथ करना

Question ID : **4410091544184**
Option 1 ID : **4410096099835**
Option 2 ID : **4410096099837**
Option 3 ID : **4410096099838**
Option 4 ID : **4410096099836**

Q.8 भाषा के संदर्भ में 'नियम-संचालित तंत्र' का सर्वोत्तम वर्णन कौन-सी विशेषता करती है?

Ans

✗ 1. भाषा केवल बोले गए शब्दों और लिखित अभिव्यक्तियों पर आधारित है।

✓ 2. भाषा, व्याकरण और वाक्य संरचना के लिए संरचित नियमों के साथ संचालित होती है।

✗ 3. भाषा स्वाभाविक रूप से नए नियमों के साथ विकसित हो रही है जिसमें परिवर्तन हो सकता है।

✗ 4. भाषा में सभी शब्दों के लिए कोई संरचना या प्रामाणिक नियम नहीं होते हैं।

Question ID : **4410091651085**
Option 1 ID : **4410096520452**
Option 2 ID : **4410096520450**
Option 3 ID : **4410096520451**
Option 4 ID : **4410096520453**

Q.9 प्रशिक्षण के दौरान, एक विद्यार्थी शिक्षिका को नवीन शिक्षण विधियों का प्रयोग करने पर बेचैनी महसूस होती है। वह अपनी क्षमताओं के संबंध में अपने विश्वासों का विश्लेषण करती है और सुधार के लिए प्रतिपुष्टि मांगती है। आत्म-समझ का कौन-सा पहलू उसके मामले में सर्वाधिक प्रासंगिक है?

Ans

✗ 1. घबराहट को प्रबंधित करने के लिए संवेगात्मक विनियमन तकनीकों का उपयोग करना

✗ 2. अनुदेश के दौरान अपनी शारीरिक भाषा और अशाब्दिक संकेतों के प्रति सचेत रहना

✗ 3. शिक्षकों से अपेक्षित कर्तव्यों और आचरण मानकों को समझना

✓ 4. शिक्षण आत्मविश्वास के निर्माण के लिए स्व-प्रभावकारिता विश्वासों पर चिंतन करना

Question ID : **4410091629165**
Option 1 ID : **4410096434767**
Option 2 ID : **4410096434769**
Option 3 ID : **4410096434768**
Option 4 ID : **4410096434766**

Q.10 नियम-आधारित भाषा प्रणाली में, वाक्यों के निर्माण को कौन निर्देशित करता है?

Ans

✓ 1. शब्द क्रम और संरचना के लिए विशिष्ट नियम।

✗ 2. वक्ताओं की व्यक्तिगत प्राथमिकताएँ।

✗ 3. शब्दों का दृश्य स्वरूप।

✗ 4. शब्दों का यादृच्छिक चयन।

Question ID : **4410091628324**
Option 1 ID : **4410096431454**
Option 2 ID : **4410096431455**
Option 3 ID : **4410096431457**
Option 4 ID : **4410096431456**

Q.11 विभिन्न शिक्षार्थियों वाली कक्षा में प्रारंभिक भाषा अर्जन का आकलन करने के लिए कौन-सी रणनीति सबसे प्रभावी होती है?

Ans

✗ 1. मौन पठन समय का अनुवीक्षण करना

✗ 2. मानकीकृत लिखित परीक्षाएँ आयोजित करना

✗ 3. शब्द सूचियों को याद करने की क्षमता की जाँच करना

✓ 4. अंतःक्रियात्मक भूमिका-निर्वाह परिदृश्यों का अवलोकन करना

Question ID : **4410091646576**
Option 1 ID : **4410096502547**
Option 2 ID : **4410096502546**
Option 3 ID : **4410096502548**
Option 4 ID : **4410096502545**

Q.12 **A school wants to maximise the academic progress of its students without hiring additional staff. The administration decides to introduce classwide peer tutoring. Why is this approach considered cost-effective?**

Ans

✓ 1. It extends instructional support using existing students.

✗ 2. It requires significant investment in materials.

✗ 3. It reduces the overall instructional time.

✗ 4. It depends on external mentors for tutoring.

Question ID : **4410091629301**
Option 1 ID : **4410096435290**
Option 2 ID : **4410096435291**
Option 3 ID : **4410096435293**
Option 4 ID : **4410096435292**

Q.13 प्रारंभिक वर्षों में बच्चों के लिए साहित्य को अधिगम का एक अनिवार्य स्रोत क्यों माना जाता है?

Ans

✓ 1. यह सहजता और एकीकृत भाषा अधिगम को बढ़ावा देता है

✗ 2. यह केवल शब्दावली और व्याकरण सिखाता है

✗ 3. यह पूर्ण रूप से कहानियों को याद करने पर केंद्रित है

✗ 4. यह कक्षा की अन्य सभी गतिविधियों का स्थान ले लेता है

Question ID : **4410091572386**
Option 1 ID : **4410096210535**
Option 2 ID : **4410096210532**
Option 3 ID : **4410096210533**
Option 4 ID : **4410096210534**

QuickSarkari.com | WhatsApp Channel | Telegram: t.me/quick_sarkari

Q.14 एक विद्यालय, विद्यार्थियों को रवींद्रनाथ टैगोर के विश्व-दर्शन को आत्मसात करने में सहायता करने के लिए एक सप्ताह तक चलने वाले उत्सव की योजना बना रहा है। शांतिनिकेतन मॉडल में हाइलाइट किए गए अनुसार, कौन-सी गतिविधि टैगोर के प्रकृति के साथ सामंजस्य और रचनात्मक शिक्षाशास्त्र के विश्वास को सर्वोत्तम रूप से एकीकृत करती है?

Ans

✗ 1. टैगोर के जीवन और उपलब्धियों पर प्रतियोगी प्रश्नोत्तरी आयोजित करना

✓ 2. ग्रामीण बंगाल और पर्यावरण विषयों पर खुले में भित्ति चित्र कार्यशालाओं का आयोजन करना

✗ 3. टैगोर के नोबेल पुरस्कार पर व्यक्तिगत निबंध लेखन देना

✗ 4. बंगाल पुनर्जागरण के इतिहास पर व्याख्यान आयोजित करना

Question ID : **4410091613243**
Option 1 ID : **4410096371806**
Option 2 ID : **4410096371809**
Option 3 ID : **4410096371807**
Option 4 ID : **4410096371808**

Q.15 पूर्व-विद्यालय वर्षों (3-6) के दौरान, शब्दावली में सैकड़ों से हजारों शब्दों की अत्यंत तीव्र वृद्धि मुख्य रूप से किस कारण से होती है?

Ans

✗ 1. औपचारिक व्याकरण अनुदेश और रटन स्मरण की तकनीक

✓ 2. सामाजिक अंत:क्रिया और समृद्ध भाषाई परिवेश के माध्यम से आकस्मिक संपर्क

✗ 3. मौखिक अभ्यास के बिना मुद्रित सामग्री पठन पर विशेष ध्यान

✗ 4. कक्षाकक्ष के संरचित परिवेश में पृथक शब्दों का बार-बार अभ्यास करना

Question ID : **4410091554849**
Option 1 ID : **4410096142027**
Option 2 ID : **4410096142028**
Option 3 ID : **4410096142029**
Option 4 ID : **4410096142030**

Q.16 किस मूलभूत सचेतनता कार्यक्रम (foundational mindfulness program) को लोगों को अपने अनुभवों पर ध्यान केंद्रित करने और उन्हें समझकर अपने कल्याण का उत्तरदायित्व लेने में सहायता करने के लिए विकसित किया गया था?

Ans

✗ 1. सचेतन भावनात्मक विनियमन (Mindfulness Emotional Regulation)

✓ 2. सचेतनता-आधारित तनाव न्यूनीकरण (Mindfulness-Based Stress Reduction)

✗ 3. सचेतनता स्वीकरण प्रशिक्षण (Mindfulness Acceptance Training)

✗ 4. सचेतनता-आधारित संज्ञानात्मक चिकित्सा (Mindfulness-Based Cognitive Therapy)

Question ID : **4410091553448**
Option 1 ID : **4410096136464**
Option 2 ID : **4410096136465**
Option 3 ID : **4410096136466**
Option 4 ID : **4410096136463**

Q.17 स्वयं का अवलोकन करने से अधिगम का एक प्रमुख लाभ क्या है?

Ans

✗ 1. नई स्थितियों में दूसरों के व्यवहार का अनुकरण करना

✓ 2. अपनी व्यक्तिगत प्रत्ययकारिता और कमजोरियों के बारे में जागरूकता प्राप्त करना

✗ 3. प्रत्येक क्रियाकलाप में गलतियों से बचना

✗ 4. स्व आकलन के लिए दूसरों की सम्मति पर निर्भर रहना

Question ID : **4410091696538**
Option 1 ID : **4410096692038**
Option 2 ID : **4410096692037**
Option 3 ID : **4410096692039**
Option 4 ID : **4410096692040**

Q.18 निम्नलिखित में से कौन-सा कथन शिक्षा में राष्ट्रीय एकीकरण के मुख्य उद्देश्य का सर्वोत्तम वर्णन करता है?

Ans

✗ 1. क्षेत्रों के बीच प्रतिस्पर्धा को प्रोत्साहित करना

✗ 2. अंतर्राष्ट्रीय यात्रा और विनिमय को प्रेरित करना

✗ 3. केवल स्थानीय इतिहास पढ़ाना

✓ 4. विभिन्न समूहों के बीच एकता को बढ़ावा देना

Question ID : **4410091690457**
Option 1 ID : **4410096668029**
Option 2 ID : **4410096668028**
Option 3 ID : **4410096668027**
Option 4 ID : **4410096668026**

Q.19 एक पाठ्यचर्या टीम समावेशिता और सहपाठी अंत:क्रिया को बढ़ावा देने के लिए एक शिक्षण उपागम का चयन कर रही है। सहपाठी अनुशिक्षण के उनके चयन का सबसे प्रबल समर्थन कौन-सा तर्काधार करता है?

Ans

✓ 1. यह शैक्षणिक सहायता के लिए विद्यार्थियों की क्षमताओं का उपयोग करता है।

✗ 2. यह सभी अनुदेशात्मक वितरण विधियों को मानकीकृत करता है।

✗ 3. यह विद्यार्थियों की भूमिकाओं को केवल पर्यवेक्षक और प्रतिभागी तक सीमित करता है।

✗ 4. यह लचीले समूह निर्माण के अवसरों को कम करता है।

Question ID : **4410091644924**
Option 1 ID : **4410096496234**
Option 2 ID : **4410096496235**
Option 3 ID : **4410096496236**
Option 4 ID : **4410096496237**

Quick Sarkari

Q.20 कक्षा में अनुभवात्मक अधिगम (experiential learning) से विद्यार्थियों को क्या लाभ होता है?

Ans

✗ 1. यह रचनात्मकता को हतोत्साहित करता है।

✗ 2. यह केवल स्मृति में सुधार करता है।

✗ 3. यह सामाजिक अन्तःक्रिया को सीमित करता है।

✓ 4. यह संज्ञानात्मक, अभिवृत्तिक और व्यवहारात्मक परिवर्तनों की ओर ले जाता है।

Question ID : **4410091602334**
Option 1 ID : **4410096328913**
Option 2 ID : **4410096328911**
Option 3 ID : **4410096328912**
Option 4 ID : **4410096328910**

Section : **Discipline3**

Q.1 शैक्षिक नेतृत्व को अनुदेशनात्मक नेतृत्व की तुलना में व्यापक क्यों माना जाता है?

Ans

✗ 1. यह नेतृत्व को केवल प्रमुख कर्तव्यों तक सीमित करता है।

✓ 2. यह शिक्षकों की स्वायत्तता और विद्यालय-व्यापी अधिगम सुधार पर बल देता है।

✗ 3. यह केवल प्रशासनिक कार्यों और पाठ्यचर्या कार्यान्वयन पर केंद्रित है।

✗ 4. यह अधिगम में विद्यार्थियों की संलग्नता की आवश्यकता को नजरअंदाज करता है।

Question ID : **4410091602332**
Option 1 ID : **4410096328904**
Option 2 ID : **4410096328902**
Option 3 ID : **4410096328903**
Option 4 ID : **4410096328905**

Q.2 A child stacks blocks in patterns and talks with friends while building. Which play types are shown, and how do they work together?

Ans

✗ 1. Functional play and parallel play; the child repeats actions while playing near others without interaction

✓ 2. Constructive play and associative play; the child builds while interacting and coordinating with peers

✗ 3. Symbolic play and solitary play; the child pretends and plays alone without peer involvement

✗ 4. Constructive play and symbolic play; the child builds objects while imagining scenarios independently

Question ID : **4410091628678**
Option 1 ID : **4410096432859**
Option 2 ID : **4410096432858**
Option 3 ID : **4410096432860**
Option 4 ID : **4410096432861**

QuickSarkari.com | WhatsApp Channel | Telegram: t.me/quick_sarkari

Q.3 **NCF 2005 के अनुसार, विद्यालय में गणित शिक्षा का मुख्य लक्ष्य क्या है?**

Ans

✔ 1. बच्चों के मन का गणितीयकरण

✘ 2. सूत्रों का स्मरण

✘ 3. इंजीनियरिंग की तैयारी

✘ 4. व्यावसायिक प्रशिक्षण

Question ID : **4410091682267**
Option 1 ID : **4410096636368**
Option 2 ID : **4410096636369**
Option 3 ID : **4410096636367**
Option 4 ID : **4410096636366**

Q.4 **The role of the teacher in alternative schooling is primarily that of a/an:**

Ans

✘ 1. Content expert

✘ 2. Curriculum implementer

✔ 3. Facilitator

✘ 4. Authority figure

Question ID : **4410091580950**
Option 1 ID : **4410096245152**
Option 2 ID : **4410096245154**
Option 3 ID : **4410096245155**
Option 4 ID : **4410096245153**

Q.5 **भाषा विकास पर नाटकीय खेल (pretend play) के प्रभाव का आकलन करने का एक प्रभावी तरीका क्या है?**

Ans

✘ 1. लिखित परीक्षाएँ आयोजित करना (Administer written tests)

✘ 2. व्यक्तिगत पठन कार्य सौंपना (Assign individual reading)

✘ 3. मौन अवलोकन का उपयोग करना (Use silent observation)

✔ 4. सामूहिक कहानी सुनाने का अवलोकन करना (Observe group storytelling)

Question ID : **4410091629872**
Option 1 ID : **4410096437574**
Option 2 ID : **4410096437575**
Option 3 ID : **4410096437576**
Option 4 ID : **4410096437573**

Q.6 **Choose the correct sentence with proper subject-verb agreement.**

Ans

✘ 1. The dog bark loudly at night.

✔ 2. The dog barks loudly at night.

✘ 3. The dog barking loudly at night.

✘ 4. The dog barked loudly at night.

Question ID : **4410091704725**
Option 1 ID : **4410096723946**
Option 2 ID : **4410096723947**
Option 3 ID : **4410096723948**
Option 4 ID : **4410096723949**

Quick Sarkari

Q.7 कौन-सा कथन, राजनीतिक नेतृत्व और घर में जेंडर भूमिकाओं के प्रति भारतीय अभिवृत्ति को सटीक रूप से सारांशित करता है?

Ans

✗ 1. समाज महिलाओं के नेतृत्व को अस्वीकार करता है जबकि घरों के भीतर समानता का समर्थन करता है।

✓ 2. समाज महिलाओं को राजनीतिक नेता के रूप में स्वीकार करता है, लेकिन उनसे पारंपरिक घरेलू भूमिकाओं की अपेक्षा रखता है।

✗ 3. समाज घरेलू स्वतंत्रता को बढ़ावा देते हुए महिलाओं की राजनीतिक भागीदारी को हतोत्साहित करता है।

✗ 4. समाज महिलाओं के नेतृत्व और घरेलू जिम्मेदारियों में उनकी भागीदारी का समान रूप से समर्थन करता है।

Question ID : **4410091601993**
Option 1 ID : **4410096327568**
Option 2 ID : **4410096327567**
Option 3 ID : **4410096327569**
Option 4 ID : **4410096327566**

Q.8 शास्त्रीय अनुबंधन की अवधारणा (concept of classical conditioning) किसने विकसित की थी?

Ans

✗ 1. सिग्मंड फ्रायड (Sigmund Freud)

✗ 2. बी.एफ. स्किनर (B.F. Skinner)

✓ 3. इवान पेट्रोविच पावलोव (Ivan Petrovich Pavlov)

✗ 4. जीन पियाजे (Jean Piaget)

Question ID : **4410091612346**
Option 1 ID : **4410096368228**
Option 2 ID : **4410096368229**
Option 3 ID : **4410096368227**
Option 4 ID : **4410096368230**

Q.9 निम्नलिखित में से कौन-सी गतिविधि, विद्यार्थियों को यह समझने में सर्वाधिक सहायक होती है कि लंबाई, क्षेत्रफल और आयतन को मापते समय इकाइयों को सुसंगत होना चाहिए?

Ans

✗ 1. इकाइयों का उपयोग किए बिना दृश्य तुलना द्वारा वस्तुओं का आकलन करना

✗ 2. प्रत्येक बार विभिन्न अनौपचारिक इकाइयों का उपयोग करके वस्तुओं को मापना

✓ 3. मीटर, वर्गमीटर और घनमीटर का उपयोग करके वस्तुओं को मापना

✗ 4. वस्तुओं के मापों को रिकॉर्ड करना लेकिन इकाई के नाम न लिखना

Question ID : **4410091633203**
Option 1 ID : **4410096450931**
Option 2 ID : **4410096450932**
Option 3 ID : **4410096450930**
Option 4 ID : **4410096450933**

QuickSarkari.com | WhatsApp Channel | Telegram: t.me/quick_sarkari

Q.10 **A healthcare organization is designing a new telemedicine platform to connect specialists from different countries. To ensure precise medical communication and patient safety, what language policy should the developers prioritize, considering English's global role in science and medicine?**

Ans

✗ 1. Allowing users to select any language for reports and consultations

✗ 2. Translating each interaction in real-time for every user

✓ 3. Implementing English as the standard interface and reporting language

✗ 4. Using only local languages for each region's interface and reports

Question ID : **4410091623855**
Option 1 ID : **4410096414003**
Option 2 ID : **4410096414002**
Option 3 ID : **4410096414000**
Option 4 ID : **4410096414001**

Q.11 **निम्नलिखित में से कौन-सा, TV विज्ञापन का समाज पर एक प्रमुख प्रभाव है?**

Ans

✓ 1. यह क्रय निर्णयों को अचेत रूप से प्रभावित करता है

✗ 2. यह समीक्षात्मक चिंतन को प्रोत्साहित करता है

✗ 3. यह उपभोक्तावाद को कम करता है

✗ 4. यह ऐतिहासिक तथ्य सिखाता है

Question ID : **4410091572430**
Option 1 ID : **4410096210669**
Option 2 ID : **4410096210668**
Option 3 ID : **4410096210670**
Option 4 ID : **4410096210671**

Q.12 **Which classroom practice supports English as a global language while also respecting local languages?**

Ans

✓ 1. Encouraging bilingual activities and discussions

✗ 2. Focusing only on translation exercises daily

✗ 3. Discouraging use of native language entirely

✗ 4. Insisting on only English in all interactions

Question ID : **4410091638595**
Option 1 ID : **4410096472058**
Option 2 ID : **4410096472061**
Option 3 ID : **4410096472060**
Option 4 ID : **4410096472059**

QuickSarkari.com | WhatsApp Channel | Telegram: t.me/quick_sarkari

Q.13 टेलीविजन विज्ञापन मुख्यत: बच्चों के व्यवहार को किस प्रकार से प्रभावित करता है?

Ans

✗ 1. यह सूचना के माध्यम से शैक्षणिक प्रदर्शन में सुधार करता है

✓ 2. यह उपभोक्ताओं की प्राथमिकताओं को आकार देता है और खरीद को प्रभावित करता है।

✗ 3. यह आक्रामकता और हिंसक प्रवृत्तियों को कम करता है

✗ 4. यह अवधान विस्तृति और फोकस कौशल में सुधार करता है

Question ID : **4410091642808**
Option 1 ID : **4410096488127**
Option 2 ID : **4410096488126**
Option 3 ID : **4410096488128**
Option 4 ID : **4410096488125**

Q.14 Which role does the community play in education?

Ans

✗ 1. Designing examination systems

✓ 2. Providing support and resources

✗ 3. Managing daily school operations

✗ 4. Conducting classroom teaching

Question ID : **4410091602178**
Option 1 ID : **4410096328299**
Option 2 ID : **4410096328301**
Option 3 ID : **4410096328300**
Option 4 ID : **4410096328298**

Q.15 पाठ्यचर्या को पूर्णत: नए सिरे से डिजाइन करना इस धारणा को चुनौती देता है कि ज्ञान _____ होता है।

Ans

✗ 1. प्रसंग सापेक्ष

✓ 2. स्थिर और सार्वभौमिक

✗ 3. सांस्कृतिक रूप से अंत:स्थापित

✗ 4. सामाजिक रूप से निर्मित

Question ID : **4410091580959**
Option 1 ID : **4410096245187**
Option 2 ID : **4410096245188**
Option 3 ID : **4410096245185**
Option 4 ID : **4410096245186**

Q.16 जब बच्चे और वयस्क दोनों टेलीविजन विज्ञापन देखते हैं, तो संभावित साझा परिणाम क्या होता है?

Ans

✓ 1. दोनों की विज्ञापित उत्पादों में रुचि बढ़ सकती है।

✗ 2. दोनों टेलीविजन पर विज्ञापन के संपर्क में कभी नहीं आते।

✗ 3. दोनों लगातार विज्ञापित उत्पादों से बचते हैं।

✗ 4. दोनों विज्ञापन संदेशों से सदैव अप्रभावित रहते हैं।

Question ID : **4410091637871**
Option 1 ID : **4410096469042**
Option 2 ID : **4410096469045**
Option 3 ID : **4410096469044**
Option 4 ID : **4410096469043**

QuickSarkari.com | WhatsApp Channel | Telegram: t.me/quick_sarkari

Q.17 एक फैसिलिटेटर देखता है कि एक शांत प्रतिभागी अपने विचार साझा करने में हिचकिचा रहा है। फैसिलिटेटर विनम्रतापूर्वक मुक्तोत्तर प्रश्न (open-ended questions) पूछता है और एक सहायक परिवेश प्रदान करता है। यहाँ किस सुगमता कौशल का उपयोग किया जा रहा है?

Ans

✔ 1. संलग्नता हेतु सक्रिय श्रवण

✘ 2. वार्तालाप नियंत्रण

✘ 3. गैर-मौखिक संकेतों की उपेक्षा

✘ 4. कड़ी पूछताछ

Question ID : **4410091548468**
Option 1 ID : **4410096116569**
Option 2 ID : **4410096116571**
Option 3 ID : **4410096116570**
Option 4 ID : **4410096116568**

Q.18 During a peer review session, a student notices the sentence: "Neither the principal nor the teachers is attending the event." Which correction maintains proper subject-verb agreement?

Ans

✔ 1. Neither the principal nor the teachers are attending the event.

✘ 2. Neither the principal nor the teachers attends the event.

✘ 3. Neither the principal nor the teachers was attending the event.

✘ 4. Neither the principal nor the teachers have attended the event.

Question ID : **4410091629781**
Option 1 ID : **4410096437209**
Option 2 ID : **4410096437210**
Option 3 ID : **4410096437211**
Option 4 ID : **4410096437212**

Q.19 नीचे दिए गए अभिकथन (A) और कारण (R) को पढ़िए तथा उनके आधार पर सही विकल्प का चयन कीजिए।

अभिकथन (A): छोटे बच्चों को आयतन की अवधारणा से परिचित कराते समय, जल और विभिन्न आकृतियों के पात्रों का उपयोग करना लाभकारी होता है।
कारण (R): व्यावहारिक गतिविधियों से बच्चों को यह कल्पना करने और तुलना करने में मदद मिलती है कि कोई वस्तु कितनी जगह घेरती है।

Ans

✘ 1. A गलत है, लेकिन R सही है।

✘ 2. A सही है, लेकिन R गलत है।

✘ 3. A और R दोनों ही सही हैं, लेकिन R, A की सही व्याख्या नहीं है।

✔ 4. A और R दोनों ही सही हैं, तथा R, A की सही व्याख्या है।

Question ID : **4410091609268**
Option 1 ID : **4410096355991**
Option 2 ID : **4410096355990**
Option 3 ID : **4410096355989**
Option 4 ID : **4410096355988**

Q.20 प्रथम वर्ष का कॉलेज विद्यार्थी, समकक्षी के मानदंडों के अनुरूप ढलने के दबाव का सामना करते हुए, प्राय: शैक्षणिक चुनौतियों को स्वीकार करने से इनकार करता है। सामाजिक-सांस्कृतिक संदर्भ में इस रक्षा युक्ति के बने रहने में कौन-सा संकल्पना कारक (concept factor) सर्वाधिक योगदान देता है?

Ans

✗ 1. प्रदर्शन को प्रभावित करने वाली माता-पिता की शैक्षणिक अपेक्षाएँ

✓ 2. रक्षा युक्ति चयन पर समकक्षी की स्वीकृति का प्रभाव

✗ 3. अधिगम रणनीतियों को प्रभावित करने वाली वैयक्तिक अभिप्रेरण का स्तर

✗ 4. कक्षा की सहभागिता को आकृति देने वाले संस्थागत नियम

Question ID : **4410091623906**
Option 1 ID : **4410096414205**
Option 2 ID : **4410096414204**
Option 3 ID : **4410096414206**
Option 4 ID : **4410096414207**

Section : **Discipline4**

Q.1 अंग्रेजी भाषा पाठ विकास की शिक्षण पद्धति में इकाई नियोजन के प्राथमिक उद्देश्य का सबसे सटीक वर्णन निम्नलिखित में से कौन-सा विकल्प करता है?

Ans

✗ 1. प्रत्येक पाठ की समाप्ति के बाद ही विद्यार्थियों का मूल्यांकन करना

✗ 2. विशेष रूप से व्याकरण अनुदेशन पर ध्यान केंद्रित करना

✓ 3. साझा उद्देश्यों के लिए पाठों को व्यवस्थित करना

✗ 4. सहभागिता बढ़ाने के लिए यादृच्छिक गतिविधियों का चयन करना

Question ID : **4410091611725**
Option 1 ID : **4410096365745**
Option 2 ID : **4410096365746**
Option 3 ID : **4410096365744**
Option 4 ID : **4410096365743**

Q.2 निम्नलिखित में से कौन-सी, विद्यालय के परिवर्तनकारी नेता की प्रमुख विशेषता है?

Ans

✗ 1. निर्णयन में शिक्षकों की भागीदारी को सीमित करने की क्षमता

✗ 2. केवल वैयक्तिक उपलब्धियों पर फोकस करने की क्षमता

✓ 3. दृष्टिकोण साझा करने के लिए दूसरों को प्रेरित और सशक्त करने की क्षमता

✗ 4. बिना किसी परिवर्तन के मौजूदा कार्य-पद्धतियों को बनाए रखने की क्षमता

Question ID : **4410091579621**
Option 1 ID : **4410096239786**
Option 2 ID : **4410096239785**
Option 3 ID : **4410096239788**
Option 4 ID : **4410096239787**

QuickSarkari.com | WhatsApp Channel | Telegram: t.me/quick_sarkari

Q.3 **Which of the following best describes a unit plan in the context of lesson planning for English language teaching?**

Ans

✗ 1. A student attendance sheet

✗ 2. A list of classroom materials

✓ 3. A structured outline of related lessons

✗ 4. A single day's lesson notes

Question ID : **4410091627380**
Option 1 ID : **4410096427806**
Option 2 ID : **4410096427808**
Option 3 ID : **4410096427807**
Option 4 ID : **4410096427809**

Q.4 **सामाजिक अध्ययन के दायरे में मुख्यत: क्या शामिल होता है?**

Ans

✓ 1. इतिहास, भूगोल, नागरिक शास्त्र, अर्थशास्त्र, संस्कृति का अध्ययन करना

✗ 2. गणित और विज्ञान विषयों से अवधारणाओं का अधिगम करना

✗ 3. केवल चयनित राजनीतिक घटनाओं को पढ़ाना

✗ 4. मुख्यत: तिथियों और नामों को याद रखने पर ध्यान केंद्रित करना

Question ID : **4410091553564**
Option 1 ID : **4410096136928**
Option 2 ID : **4410096136929**
Option 3 ID : **4410096136927**
Option 4 ID : **4410096136930**

Q.5 **एक शिक्षक वैज्ञानिक जांच को शामिल करते हुए, प्रकरणों को आपस में जोड़ते हुए और सभी क्षमताओं के अनुरूप एक पाठ तैयार करता है। इस पाठ में कौन-सी शिक्षण विधि का प्रयोग किया जा रहा है?**

Ans

✗ 1. केवल अवधारणात्मक प्रक्रम

✗ 2. पारंपरिक व्याख्यान विधि

✗ 3. रटन कंठस्थीकरण

✓ 4. एकीकृत और समावेशी उपागम

Question ID : **4410091637698**
Option 1 ID : **4410096468375**
Option 2 ID : **4410096468376**
Option 3 ID : **4410096468377**
Option 4 ID : **4410096468374**

QuickSarkari.com | WhatsApp Channel | Telegram: t.me/quick_sarkari

Q.6 निम्नलिखित में से कौन-सा विकल्प कम लागत, बिना लागत सामग्री का उदाहरण है, जिसका उपयोग पर्यावरण अध्ययन शिक्षण के लिए किया जा सकता है?

Ans

✗ 1. रंगीन पाठ्यपुस्तकें

✓ 2. विद्यालय के मैदान से एकत्रित की गई पत्तियां

✗ 3. प्रयोगशाला के कांच के बर्तन

✗ 4. डिजिटल प्रोजेक्टर

Question ID : **4410091622391**
Option 1 ID : **4410096408337**
Option 2 ID : **4410096408336**
Option 3 ID : **4410096408339**
Option 4 ID : **4410096408338**

Q.7 What is unit planning in English language pedagogy?

Ans

✗ 1. Assigning homework

✗ 2. Selecting textbooks

✗ 3. Writing daily reflections

✓ 4. Theme based lessons

Question ID : **4410091631515**
Option 1 ID : **4410096444279**
Option 2 ID : **4410096444278**
Option 3 ID : **4410096444277**
Option 4 ID : **4410096444276**

Q.8 Which approach best enables students to critically evaluate contemporary social issues through Social Studies textbooks?

Ans

✗ 1. Thematic memorization

✗ 2. Listing textbook facts

✓ 3. Case studies and discussion

✗ 4. Isolating textbook chapters

Question ID : **4410091682183**
Option 1 ID : **4410096636102**
Option 2 ID : **4410096636103**
Option 3 ID : **4410096636104**
Option 4 ID : **4410096636105**

Q.9 सूक्ष्म शिक्षण मुख्यत: _____ पर केंद्रित होता है।

Ans

✗ 1. पाठ्यपुस्तक की विषयवस्तु का स्मरण करने

✓ 2. एक नियंत्रित, लघु समूह में विशिष्ट शिक्षण कौशल का अभ्यास करने

✗ 3. स्कूल की अवसंरचना का मूल्यांकन करने

✗ 4. एक बड़ी कक्षा को पूर्ण पाठ पढ़ाने

Question ID : **4410091553487**
Option 1 ID : **4410096136621**
Option 2 ID : **4410096136620**
Option 3 ID : **4410096136622**
Option 4 ID : **4410096136619**

QuickSarkari.com | WhatsApp Channel | Telegram: t.me/quick_sarkari

Q.10 **Which instructional component is strengthened when a low-exposure primary teacher supplements lessons with structured online computer-lab activities?**

Ans

✔ 1. Classroom-based instruction

✘ 2. Teacher's grammar knowledge

✘ 3. Course book grading

✘ 4. Standardized test scores

Question ID : **4410091558845**
Option 1 ID : **4410096157767**
Option 2 ID : **4410096157766**
Option 3 ID : **4410096157768**
Option 4 ID : **4410096157765**

Q.11 **निम्नलिखित में से कौन-सा, सामाजिक अध्ययन की पाठ्यपुस्तकों के विश्लेषण के महत्व की सर्वोत्तम व्याख्या करता है?**

Ans

✘ 1. यह विद्यार्थियों को अधिगम गतिविधियों को छोड़ने की अनुमति देता है।

✘ 2. यह पुस्तकों को लंबा और पढ़ने में कठिन बना देता है।

✘ 3. यह शिक्षकों की पाठ्यपुस्तकों का उपयोग करने से बचने में सहायता करता है।

✔ 4. यह सटीकता और विविधता सुनिश्चित करता है।

Question ID : **4410091616362**
Option 1 ID : **4410096384373**
Option 2 ID : **4410096384371**
Option 3 ID : **4410096384372**
Option 4 ID : **4410096384370**

Q.12 **व्याकरण अनुवाद पद्धति (GTM) मूलतः _____ पर आधारित थी।**

Ans

✘ 1. सक्रिय सहभागिता के साथ कार्य-आधारित अधिगम

✘ 2. आधुनिक संचार सिद्धांतों

✘ 3. अभ्यास का उपयोग करके मौखिक भाषा के अभ्यास

✔ 4. लैटिन और ग्रीक का शास्त्रीय भाषा शिक्षण

Question ID : **4410091572462**
Option 1 ID : **4410096210782**
Option 2 ID : **4410096210780**
Option 3 ID : **4410096210781**
Option 4 ID : **4410096210783**

QuickSarkari.com | WhatsApp Channel | Telegram: t.me/quick_sarkari

Q.13 एक शिक्षक अपनी प्राथमिक EVS कक्षा के लिए 'आश्रय (Shelter)' और 'जल (Water)' विषयों को जोड़ने वाली परियोजना तैयार करना चाहता है। कौन-सा उपागम पाठ्यचर्या के लक्ष्यों के साथ सर्वोत्तम रूप से संरेखित है?

Ans

✗ 1. स्थानीय और पारंपरिक आश्रयों की तुलना करना

✗ 2. आश्रय की सामग्री और निर्माण का अध्ययन करना

✓ 3. आश्रयों पर जल के प्रभाव का अध्ययन करना

✗ 4. घरों में जल के उपयोग का अन्वेषण करना

Question ID : **4410091623926**
Option 1 ID : **4410096414285**
Option 2 ID : **4410096414287**
Option 3 ID : **4410096414284**
Option 4 ID : **4410096414286**

Q.14 प्राथमिक स्तर के पर्यावरण अध्ययन पाठ्यचर्या में निम्नलिखित में से कौन-सा एक प्रमुख विषय-वस्तु क्षेत्र है?

Ans

✗ 1. केवल पर्यावरण या प्रकृति से असंबंधित ऐतिहासिक घटनाओं का अध्ययन करना

✗ 2. प्राकृतिक जगत का प्रेक्षण किए बिना परिभाषाओं और शब्दों को स्मरण करना

✗ 3. केवल उन्नत वैज्ञानिक सिद्धांतों और प्रयोगशाला प्रयोगों पर फोकस करना

✓ 4. पादप, पशुओं, जल, वायु और आसपास के पर्यावरण को समझना

Question ID : **4410091547470**
Option 1 ID : **4410096112741**
Option 2 ID : **4410096112742**
Option 3 ID : **4410096112740**
Option 4 ID : **4410096112739**

Q.15 राज्य शिक्षा बोर्ड ने 100% विद्यार्थी नामांकन (लक्ष्य प्राप्ति) हासिल किया। हालांकि, बजट रिपोर्ट में प्रति विद्यार्थी लागत में चार गुना वृद्धि (इनपुट अनुपात) का खुलासा हुआ। बोर्ड के कार्य-निष्पादन का आकलन किस प्रकार से किया गया है?

Ans

✓ 1. उच्च प्रभावशीलता, निम्न दक्षता

✗ 2. निम्न प्रभावशीलता, उच्च दक्षता

✗ 3. उच्च लाभप्रदता, निम्न लक्ष्य प्राप्ति

✗ 4. उच्च दक्षता, संसाधन का उच्च अपव्यय

Question ID : **4410091550828**
Option 1 ID : **4410096125595**
Option 2 ID : **4410096125596**
Option 3 ID : **4410096125597**
Option 4 ID : **4410096125598**

QuickSarkari

Q.16 **A school leadership team wants to evaluate the success of a new initiative to foster a positive, inclusive culture. Which strategy best ensures the measurement is valid and meaningful?**

Ans

✗ 1. Collecting attendance records

✗ 2. Reviewing textbook purchases

✗ 3. Surveying only students

✓ 4. Observation, discussion & performance

Question ID : **4410091623856**
Option 1 ID : **4410096414004**
Option 2 ID : **4410096414007**
Option 3 ID : **4410096414005**
Option 4 ID : **4410096414006**

Q.17 **A teacher wants to use open-ended problems in evaluation to promote higher-order thinking. Which of the following best illustrates an effective use of open-ended questions for this purpose?**

Ans

✗ 1. Instructing students to copy answers directly from textbooks

✓ 2. Asking students to recall a fixed definition from memory

✗ 3. Asking students to propose solutions and justify their choices

✗ 4. Having students select one correct option from a list

Question ID : **4410091681904**
Option 1 ID : **4410096634988**
Option 2 ID : **4410096634986**
Option 3 ID : **4410096634989**
Option 4 ID : **4410096634987**

Q.18 **A key pedagogical advantage of using open-ended questions is that they:**

Ans

✓ 1. Promote higher-order skills

✗ 2. Reduce instructional planning time

✗ 3. Simplify scoring procedures

✗ 4. Ensure identical learner responses

Question ID : **4410091584464**
Option 1 ID : **4410096259091**
Option 2 ID : **4410096259094**
Option 3 ID : **4410096259092**
Option 4 ID : **4410096259093**

QuickSarkari.com | WhatsApp Channel | Telegram: t.me/quick_sarkari

Q.19 एक माध्यमिक विद्यालय की शिक्षिका विद्यार्थियों को समाज में आर्थिक गतिविधियों के महत्व को समझाने में मदद करना चाहती है। वह एक ऐसी अंतर्विषयक परियोजना तैयार करने का निर्णय लेती है जो आर्थिक प्रणालियों को सांस्कृतिक विविधता और राजनीतिक प्रक्रियाओं से जोड़ती है। कौन-सा उपागम इस संदर्भ में वर्णित सामाजिक अध्ययन के दायरे को सर्वोत्तम रूप से दर्शाता है?

Ans

✔ 1. नागरिक भागीदारी को बढ़ावा देने के लिए कई विषयों को एकीकृत करना

✘ 2. अन्य क्षेत्रों से अलग आर्थिक गतिविधियों को पढ़ाना

✘ 3. आर्थिक परिभाषाओं को याद रखने पर जोर देना

✘ 4. शोध के लिए केवल आर्थिक सिद्धांतों पर ध्यान केंद्रित करना

Question ID : **4410091618761**
Option 1 ID : **4410096393917**
Option 2 ID : **4410096393918**
Option 3 ID : **4410096393919**
Option 4 ID : **4410096393916**

Q.20 **Which of the following best describes an open-ended question in educational evaluation?**

Ans

✘ 1. A question that has only one correct word as an answer

✘ 2. A question that can only be answered with a number

✘ 3. A question that requires a yes or no answer

✔ 4. A question that allows for multiple possible responses and explanations

Question ID : **4410091623529**
Option 1 ID : **4410096412701**
Option 2 ID : **4410096412703**
Option 3 ID : **4410096412702**
Option 4 ID : **4410096412700**

Section : **Discipline5**

Q.1 पाठ्यपुस्तकों में जेंडर-संतुलित दृश्य महत्वपूर्ण हैं, क्योंकि वे _____ सहायक होते हैं।

Ans

✘ 1. पाठ उद्देश्यों को सरल बनाने में

✘ 2. पठन कठिनाई को कम करने में

✔ 3. रूढ़िवादी भूमिकाओं को चुनौती देने में

✘ 4. पाठ्यविवरण को व्यापक बनाने में

Question ID : **4410091708489**
Option 1 ID : **4410096738619**
Option 2 ID : **4410096738621**
Option 3 ID : **4410096738620**
Option 4 ID : **4410096738622**

Q.2 भारतीय कक्षाओं में भाषाई विविधता का किसके द्वारा प्रभावी रूप से समाधान किया जा सकता है?

Ans
✗ 1. कक्षागत परिचर्चा और अंत:क्रिया को सीमित करके
✓ 2. बहुभाषी रणनीतियों का उपयोग करके
✗ 3. मातृ-भाषाओं के उपयोग को हतोत्साहित करके
✗ 4. अनुदेश के लिए एकल भाषा को सख्ती से लागू करके

Question ID : **4410091589313**
Option 1 ID : **4410096277847**
Option 2 ID : **4410096277844**
Option 3 ID : **4410096277846**
Option 4 ID : **4410096277845**

Q.3 निम्नलिखित में से कौन-सा कथन विद्यालयों में जेंडर समानता (gender equality) का सर्वोत्तम वर्णन करता है?

Ans
✗ 1. लड़कों और लड़कियों के लिए अलग-अलग कक्षाएं होना
✗ 2. खेलों में केवल लड़कों को भाग लेने की अनुमति देना
✗ 3. केवल लड़कियों को उच्च शैक्षणिक अंक देना
✓ 4. सभी जेंडर को समान अधिगम के अवसर प्रदान करना

Question ID : **4410091688027**
Option 1 ID : **4410096658897**
Option 2 ID : **4410096658894**
Option 3 ID : **4410096658896**
Option 4 ID : **4410096658895**

Q.4 A research analyst needs a four-digit prime number for a new encryption algorithm. Which of the following numbers is most suitable?

Ans
✗ 1. 2382
✓ 2. 2371
✗ 3. 2462
✗ 4. 2448

Question ID : **4410091616924**
Option 1 ID : **4410096386611**
Option 2 ID : **4410096386608**
Option 3 ID : **4410096386610**
Option 4 ID : **4410096386609**

Q.5 परिमेय संख्या p/q का मानक रूप क्या है?

Ans
✓ 1. q धनात्मक है और p और q सह-अभाज्य हैं
✗ 2. p और q दोनों धनात्मक पूर्णांक हैं
✗ 3. p और q शून्येत्तर संख्याएं हैं
✗ 4. p, मान में q से बड़ा है

Question ID : **4410091662520**
Option 1 ID : **4410096563397**
Option 2 ID : **4410096563398**
Option 3 ID : **4410096563400**
Option 4 ID : **4410096563399**

Q.6 निम्नलिखित में से कौन-सा, गणित शिक्षण में गतिविधि-आधारित उपागम का सटीक वर्णन करता है?

Ans

✗ 1. पूरी कक्षा को केवल व्याख्यान और निदर्शन प्रदान करना

✗ 2. विद्यार्थियों को बिना अभ्यास के सूत्र और नियमों को याद रखने के लिए कहना

✓ 3. अवधारणाओं का पता लगाने के लिए विद्यार्थियों को व्यावहारिक गतिविधियों में शामिल करना

✗ 4. विद्यार्थियों को बिना चर्चा के चुपचाप पढ़ने के लिए नोट्स देना

Question ID : **4410091551092**
Option 1 ID : **4410096126612**
Option 2 ID : **4410096126614**
Option 3 ID : **4410096126613**
Option 4 ID : **4410096126611**

Q.7 वैज्ञानिक जांच की एक इकाई के दौरान, विद्यार्थी पादपों के प्रकाश की ओर झुकने के बारे में पुनरावृत्त अवलोकन करते हैं और यह सुझाव देते हैं कि सभी पादप इस व्यवहार को प्रदर्शित करते हैं। वे वैज्ञानिक तर्क की कौन-सी मूल प्रक्रिया का उपयोग कर रहे हैं?

Ans

✗ 1. सांख्यिकीय तर्क

✗ 2. प्रत्युत्पादक तर्क

✗ 3. निगमनात्मक तर्क

✓ 4. आगमनात्मक तर्क

Question ID : **4410091619149**
Option 1 ID : **4410096395467**
Option 2 ID : **4410096395466**
Option 3 ID : **4410096395465**
Option 4 ID : **4410096395464**

Q.8 निम्नलिखित में से कौन-सा, सांस्कृतिक प्रथा का एक उदाहरण है जो पितृसत्तात्मक मान्यताओं को दर्शाता है?

Ans

✗ 1. वास्तुकला

✓ 2. वेशभूषा

✗ 3. पारिस्थितिकी

✗ 4. तकनीक

Question ID : **4410091606740**
Option 1 ID : **4410096345947**
Option 2 ID : **4410096345944**
Option 3 ID : **4410096345946**
Option 4 ID : **4410096345945**

QuickSarkari.com | WhatsApp Channel | Telegram: t.me/quick_sarkari

Q.9 **When aiming for formative assessment that encourages student autonomy and ongoing improvement, which evaluation method is most effective?**

Ans

✗ 1. Peer grading with rubric-based scoring

✓ 2. Self-assessment checklists with guided criteria

✗ 3. Teacher-only written feedback after tasks

✗ 4. End-of-term cumulative examination

Question ID : **4410091626497**
Option 1 ID : **4410096424361**
Option 2 ID : **4410096424360**
Option 3 ID : **4410096424362**
Option 4 ID : **4410096424363**

Q.10 **निम्नलिखित में से कौन-सा सामाजिक विज्ञान का एक महत्व नहीं है?**

Ans

✓ 1. सामाजिक संदर्भों में वैज्ञानिक प्रयोगों को सिद्ध करना

✗ 2. उपेक्षित समूहों के लिए न्यायसंगत समाधान प्रदान करना

✗ 3. अपनी संकल्पनात्मक प्रकृति में अंतर्विषयी होना

✗ 4. मानव व्यवहार की समझ को बढ़ावा देना

Question ID : **4410091548249**
Option 1 ID : **4410096115712**
Option 2 ID : **4410096115711**
Option 3 ID : **4410096115709**
Option 4 ID : **4410096115710**

Q.11 **A school principal wants to improve students' scientific temper and performance in science subjects while working under budget constraints and limited storage space. Which feature of science kits most effectively addresses these challenges?**

Ans

✗ 1. Limiting activities to teacher demonstrations only

✓ 2. Portability and use of low-cost, indigenous materials

✗ 3. Requirement of advanced laboratory infrastructure

✗ 4. Dependence on imported apparatus

Question ID : **4410091633888**
Option 1 ID : **4410096453645**
Option 2 ID : **4410096453642**
Option 3 ID : **4410096453643**
Option 4 ID : **4410096453644**

QuickSarkari.com | WhatsApp Channel | Telegram: t.me/quick_sarkari

Q.12 निम्नलिखित में से कौन-सा, आर्थिक बहिष्करण (economic exclusion) का सटीक वर्णन करता है?

Ans

✔ 1. संसाधनों, धन और बाजारों तक पहुंच के वितरण के आधार पर बहिष्करण

✘ 2. नागरिकता की स्थिति का अभाव और मूल अधिकारों से वंचित होने के परिणामस्वरूप बहिष्करण

✘ 3. राजनीतिक अधिकारों, अभिव्यक्ति की स्वतंत्रता और राजनीतिक भागीदारी की कमी के कारण बहिष्करण

✘ 4. राजनीतिक प्रक्रियाओं से विसंबंधन और कानून के समक्ष असमानता के कारण बहिष्करण

Question ID : **4410091581980**
Option 1 ID : **4410096249161**
Option 2 ID : **4410096249162**
Option 3 ID : **4410096249160**
Option 4 ID : **4410096249163**

Q.13 कक्षा में होने वाली प्रक्रियाएँ विद्यालय में जेंडर को किस प्रकार बढ़ावा देती हैं?

Ans

✘ 1. लड़कों का केवल कला और शिल्प का प्रहस्तन करना

✘ 2. सभी परियोजनाओं के लिए मिश्रित जेंडर वाली टीमें

✔ 3. लड़कों और लड़कियों के लिए बैठने की पृथक व्यवस्था

✘ 4. लड़कियों का विज्ञान प्रयोगों में अग्रणी रहना

Question ID : **4410091564670**
Option 1 ID : **4410096180259**
Option 2 ID : **4410096180256**
Option 3 ID : **4410096180257**
Option 4 ID : **4410096180258**

Q.14 निम्नलिखित में से कौन-सा, विज्ञान की प्रकृति को विद्याशाखा के रूप में सर्वोत्तम तरीके से वर्णित करता है?

Ans

✘ 1. यह केवल व्यक्तिगत अभिमत और विश्वासों पर आधारित है।

✔ 2. यह प्रकृति के प्रेक्षण और प्रयोगीकरण पर निर्भर करता है।

✘ 3. इसका परीक्षण या वैज्ञानिक रूप से सत्यापन नहीं किया जा सकता है।

✘ 4. यह तथ्यों की उपेक्षा करता है और केवल कल्पना पर फोकस करता है।

Question ID : **4410091687928**
Option 1 ID : **4410096658499**
Option 2 ID : **4410096658498**
Option 3 ID : **4410096658501**
Option 4 ID : **4410096658500**

QuickSarkari.com | WhatsApp Channel | Telegram: t.me/quick_sarkari

Q.15 **A teacher shows a short video of a conversation to demonstrate correct pronunciation and body language. This teaching aid can be best classified as?**

Ans

✗ 1. Visual aid

✗ 2. Audio aid

✗ 3. Textual aid

✓ 4. Audio-visual aid

Question ID : **4410091692826**
Option 1 ID : **4410096677348**
Option 2 ID : **4410096677347**
Option 3 ID : **4410096677350**
Option 4 ID : **4410096677349**

Q.16 **Which area of development is demonstrated when a learner consistently displays punctuality, honesty, and responsibility in school?**

Ans

✗ 1. Social domain

✗ 2. Psychomotor domain

✓ 3. Affective domain

✗ 4. Cognitive domain

Question ID : **4410091550458**
Option 1 ID : **4410096124294**
Option 2 ID : **4410096124292**
Option 3 ID : **4410096124291**
Option 4 ID : **4410096124293**

Q.17 **एक इको-क्लब का किचन गार्डन, जल की कमी के कारण संचालन में कठिनाइयों का सामना कर रहा है। कौन-सा विज्ञान क्लब सहयोग, समग्र विज्ञान प्रशंसा और समस्या-समाधान का उदाहरण होगा?**

Ans

✓ 1. क्लब के सदस्यों के साथ जल संचयन प्रणाली तैयार करना

✗ 2. उदाहरण द्वारा समझने के लिए कृत्रिम पौधों का उपयोग करना

✗ 3. प्रबंधन से अतिरिक्त निधि का अनुरोध करना

✗ 4. बिना किसी परिवर्तन के अधिक उद्यान वीक्षाओं का समय-निर्धारण करना

Question ID : **4410091619163**
Option 1 ID : **4410096395521**
Option 2 ID : **4410096395523**
Option 3 ID : **4410096395522**
Option 4 ID : **4410096395520**

Q.18 **निम्नलिखित में से कौन-सा विकल्प, 0.25 को भिन्न के रूप में सही तरह से व्यक्त करता है?**

Ans

✗ 1. 3/8

✗ 2. 2/5

✓ 3. 1/4

✗ 4. 1/2

Question ID : **4410091633963**
Option 1 ID : **4410096453953**
Option 2 ID : **4410096453951**
Option 3 ID : **4410096453952**
Option 4 ID : **4410096453950**

QuickSarkari.com | WhatsApp Channel | Telegram: t.me/quick_sarkari

Q.19 किस अवधारणा में विद्यार्थियों के बीच मतभेदों का सम्मान करना शामिल है?

Ans
✗ 1. प्रतिस्पर्धा
✓ 2. विविधता
✗ 3. समांगता
✗ 4. अनुशासन

Question ID : **4410091633786**
Option 1 ID : **4410096453237**
Option 2 ID : **4410096453234**
Option 3 ID : **4410096453236**
Option 4 ID : **4410096453235**

Q.20 एक शिक्षक ने देखा कि कक्षागत अन्योन्यक्रियाओं में प्रायः विज्ञान की चर्चाओं में लड़कों का प्रभुत्व रहता है। कौन-सा अनुदेशनात्मक समायोजन, समान भागीदारी को सर्वोत्तम रूप से बढ़ावा दे सकता है?

Ans
✗ 1. विद्यार्थियों को उनकी योग्यता के अनुसार समूहों में बाँटना
✗ 2. लड़कों को कक्षा में विज्ञान की चर्चाओं का नेतृत्व करने के लिए नियुक्त करना
✓ 3. समूह चर्चाओं के दौरान बारी-बारी से बोलने के प्रोटोकॉल बनाना
✗ 4. कक्षा में विद्यार्थियों को स्वतःस्फूर्त योगदान देने की अनुमति देना

Question ID : **4410091617303**
Option 1 ID : **4410096388113**
Option 2 ID : **4410096388114**
Option 3 ID : **4410096388112**
Option 4 ID : **4410096388111**

"

QuickSarkari.com | WhatsApp Channel | Telegram: t.me/quick_sarkari

Quick Sarkari

Thank you for studying with QuickSarkari!

Get the latest Sarkari Naukri notifications, admit cards, results, answer keys and free previous-year papers first - follow us on WhatsApp and Telegram.

Visit www.quicksarkari.com

Join our WhatsApp Channel

https://whatsapp.com/channel/0029VaxxbrREquiPoXTWM229

Join our Telegram Channel

https://t.me/quick_sarkari

Share this PDF with your friends preparing for DSSSB exams.