Quick Sarkari

DSSSB PREVIOUS YEAR PAPER WITH ANSWER KEY

DSSSB Assistant Teacher (Primary) – PRT

17 February 2026 · Shift 3

डीएसएसएसबी सहायक अध्यापक (प्राथमिक) – PRT – 17 फरवरी 2026, शिफ्ट 3 का प्रश्न पत्र, उत्तर कुंजी सहित

200	120 min	1 / −0.25	EN + HI
Questions / प्रश्न	Duration / समय	Marks per Q / अंक	Language / भाषा

Sections: General Intelligence and Reasoning Ability, General Awareness, Arithmetical and Numerical Ability, English Language and Comprehension, Hindi Language and Comprehension, Assistant Teacher (Primary) – PRT

INSIDE THIS PDF / इस PDF में

Question Paper in English + Hindi with Answer Key (correct option marked in green) + answer table — Page 2–48
प्रश्न पत्र अंग्रेज़ी + हिंदी में, उत्तर कुंजी सहित (सही विकल्प हरे रंग में) + उत्तर तालिका

Official DSSSB Response Sheet with Answer Key (correct option ticked in green) — Page 49–124
आधिकारिक DSSSB रिस्पॉन्स शीट, उत्तर कुंजी सहित (सही विकल्प हरे टिक से)

HOW TO USE THIS PAPER / इस पेपर का उपयोग कैसे करें

1. Attempt the paper first as a timed online mock test (link below).
   पहले नीचे दिए लिंक से इसे टाइमर के साथ ऑनलाइन मॉक टेस्ट के रूप में हल करें।
2. Check your score, section-wise analysis and solutions online.
   ऑनलाइन अपना स्कोर, खंड-वार विश्लेषण और हल देखें।
3. Use this PDF for revision. Correct answers are shown in green.
   दोहराने के लिए इस PDF का उपयोग करें। सही उत्तर हरे रंग में दिए गए हैं।

Attempt this paper as a FREE online mock test

इस पेपर को फ्री ऑनलाइन मॉक टेस्ट के रूप में हल करें – टाइमर, स्कोर और हल के साथ

https://quicksarkari.com/dsssb-assistant-teacher-primary-17-february-2026-shift-3-mock-test/

All DSSSB Assistant Teacher (Primary) – PRT papers and mock tests: **quicksarkari.com/dsssb-mock-test/#assistant-teacher-primary**

Join WhatsApp Channel | Join Telegram Channel

DSSSB Assistant Teacher (Primary) – PRT – Question Paper (English + Hindi)

DSSSB सहायक अध्यापक (प्राथमिक) – PRT – प्रश्न पत्र (अंग्रेज़ी + हिंदी)

Exam held on 17 February 2026, Shift 3 · 200 questions · correct answers marked ✔ in green
परीक्षा तिथि 17 फरवरी 2026, शिफ्ट 3 · 200 प्रश्न · सही उत्तर हरे रंग में ✔ से चिह्नित

> The official paper for this shift was in English. The Hindi version of each question is a translation prepared by QuickSarkari; the language-section questions are shown as asked.
> इस शिफ्ट का आधिकारिक प्रश्न पत्र अंग्रेज़ी में था। प्रत्येक प्रश्न का हिंदी संस्करण QuickSarkari द्वारा तैयार किया गया अनुवाद है; भाषा खंड के प्रश्न मूल रूप में दिए गए हैं।

General Intelligence and Reasoning Ability

Q.1 What will come in the place of '?' in the following equation, if '+' and '÷' are interchanged and '-' and '×' are interchanged?
46 + 2 × 4 - 6 ÷ 20 = ?
यदि '+' और '÷' को आपस में बदल दिया जाए तथा '-' और '×' को आपस में बदल दिया जाए, तो निम्नलिखित समीकरण में '?' के स्थान पर क्या आएगा?
46 + 2 × 4 - 6 ÷ 20 = ?

(1) 23
(2) **19 ✔**
(3) 17
(4) 27

Q.2 S, U, B, M, E, R and G are sitting around a circular table facing the centre of the table. B sits to the immediate left of M. U sits to the immediate left of E. E sits second to the left of G. R sits third to the left of M. Who sits fourth to the right of S?
S, U, B, M, E, R और G एक वृत्ताकार मेज के चारों ओर मेज के केंद्र की ओर मुख करके बैठे हैं। B, M के ठीक बाएँ बैठा है। U, E के ठीक बाएँ बैठा है। E, G के बाएँ से दूसरे स्थान पर बैठा है। R, M के बाएँ से तीसरे स्थान पर बैठा है। S के दाएँ से चौथे स्थान पर कौन बैठा है?

(1) **G ✔**
(2) B
(3) M
(4) E

Q.3 Based on the English alphabetical order, three of the following four letter-cluster pairs are alike in a certain way and thus form a group. Which is the one that DOES NOT belong to that group?
(Note: The odd one out is not based on the number of consonants/vowels or their position in the letter-cluster.)
अंग्रेज़ी वर्णमाला क्रम के आधार पर, निम्नलिखित चार अक्षर-समूह युग्मों में से तीन किसी निश्चित प्रकार से एक समान हैं और इस प्रकार एक समूह बनाते हैं। वह कौन-सा युग्म है जो उस समूह से संबंधित नहीं है?
(नोट: असंगत अक्षर-समूह, उस अक्षर-समूह में व्यंजनों/स्वरों की संख्या या उनके स्थान पर आधारित नहीं है।)

(1) TC - ZH
(2) UP - AU
(3) **YR - EV ✔**
(4) AN - GS

Q.4 Based on the English alphabetical order, three of the following four letter-cluster pairs are alike in a certain way and thus form a group. Which is the one that does not belong to that group?
(Note: The odd one out is not based on the number of consonants/vowels or their position in the letter cluster.)
अंग्रेज़ी वर्णमाला क्रम के आधार पर, निम्नलिखित चार अक्षर-समूह युग्मों में से तीन किसी निश्चित प्रकार से एक समान हैं और इस प्रकार एक समूह बनाते हैं। वह कौन-सा युग्म है जो उस समूह से संबंधित नहीं है?
(नोट: असंगत अक्षर-समूह, उस अक्षर-समूह में व्यंजनों/स्वरों की संख्या या उनके स्थान पर आधारित नहीं है।)

(1) PQ - RU
(2) IJ - KN
(3) VW - XZ ✔
(4) DE - FI

Q.5 The position(s) of how many letters will remain unchanged if each letter in the word FRIEND is arranged in the English alphabetical order?
यदि शब्द FRIEND के प्रत्येक अक्षर को अंग्रेज़ी वर्णमाला क्रम में व्यवस्थित किया जाए, तो कितने अक्षरों का/के स्थान अपरिवर्तित रहेगा/रहेंगे?

(1) None / एक भी नहीं
(2) Two / दो
(3) One / एक ✔
(4) Three / तीन

Q.6 In a certain code language, 'LEAP' is coded as '9875' and 'LEAD' is coded as '3897'.
What is the code for 'D' in the given code language?
एक निश्चित कूट भाषा में, 'LEAP' को '9875' के रूप में कूटबद्ध किया जाता है और 'LEAD' को '3897' के रूप में कूटबद्ध किया जाता है।
उस कूट भाषा में 'D' के लिए कूट क्या है?

(1) 9
(2) 8
(3) 5
(4) 3 ✔

Q.7 The position(s) of how many letters will remain unchanged if each letter in the word PRAYING is arranged in the English alphabetical order?
यदि शब्द PRAYING के प्रत्येक अक्षर को अंग्रेज़ी वर्णमाला क्रम में व्यवस्थित किया जाए, तो कितने अक्षरों का/के स्थान अपरिवर्तित रहेगा/रहेंगे?

(1) Three / तीन
(2) One / एक
(3) Two / दो
(4) Zero / शून्य ✔

Q.8 Refer to the given letter series and answer the question that follows. Counting to be done from left to right only.
(Left) B K C A L Q R V G T N J E N E J W Y C G R L A M I U (Right)
How many such consonants are there, each of which is immediately preceded by a consonant and also immediately followed by a vowel?

दी गई अक्षर श्रृंखला को देखिए और उसके बाद दिए गए प्रश्न का उत्तर दीजिए। गिनती केवल बाएँ से दाएँ की जानी है।
(बाएँ) B K C A L Q R V G T N J E N E J W Y C G R L A M I U (दाएँ)
ऐसे कितने व्यंजन हैं, जिनमें से प्रत्येक के ठीक पहले एक व्यंजन है और ठीक बाद में एक स्वर भी है?

(1) Three / तीन ✔
(2) One / एक
(3) None / एक भी नहीं
(4) Two / दो

Q.9 Select the option in which the given figure is embedded (rotation is NOT allowed).

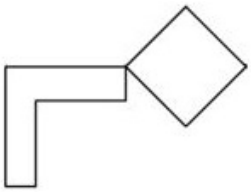

उस विकल्प का चयन कीजिए जिसमें दी गई आकृति सन्निहित है (आकृति को घुमाने की अनुमति नहीं है)।

(1)
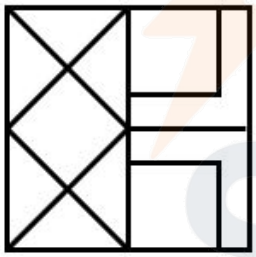

(2)
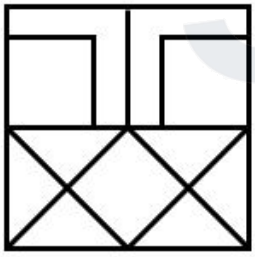

(3)
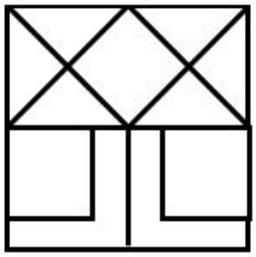

(4)
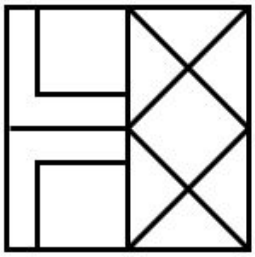

✔

QuickSarkari.com | WhatsApp Channel | Telegram: t.me/quick_sarkari

Q.10 1003 is related to 274 following a certain logic. Following the same logic, 987 is related to 258. To which of the following is 1105 related to, following the same logic?
(NOTE : Operations should be performed on the whole numbers, without breaking down the numbers into its constituent digits.
E.g. 13 – Operations on 13 such as adding /subtracting /multiplying etc. to 13 can be performed. Breaking down 13 into 1 and 3 and then performing mathematical operations on 1 and 3 is not allowed.)
एक निश्चित तर्क के अनुसार 1003, 274 से संबंधित है। उसी तर्क के अनुसार 987, 258 से संबंधित है। उसी तर्क के अनुसार 1105 निम्नलिखित में से किससे संबंधित है?
(नोट: संक्रियाएँ पूर्ण संख्याओं पर की जानी चाहिए, संख्याओं को उनके घटक अंकों में तोड़े बिना।
उदाहरण: 13 – 13 पर संक्रियाएँ जैसे 13 में जोड़ना/घटाना/गुणा करना आदि किया जा सकता है। 13 को 1 और 3 में तोड़कर फिर 1 और 3 पर गणितीय संक्रियाएँ करने की अनुमति नहीं है।)

(1) 307
(2) 376 ✔
(3) 367
(4) 365

Q.11 What should come in place of the question mark (?) in the given series?
14, 23, 32, 41, 50, ?
दी गई श्रृंखला में प्रश्न चिह्न (?) के स्थान पर क्या आना चाहिए?
14, 23, 32, 41, 50, ?

(1) 59 ✔
(2) 57
(3) 61
(4) 63

Q.12 What will come in place of the question mark (?) in the following equation if '+' and '−' are interchanged and '×' and '÷' are interchanged?
424 ÷ 2 + 966 × 3 − 23 = ?
यदि '+' और '−' को आपस में बदल दिया जाए तथा '×' और '÷' को आपस में बदल दिया जाए, तो निम्नलिखित समीकरण में प्रश्न चिह्न (?) के स्थान पर क्या आएगा?
424 ÷ 2 + 966 × 3 − 23 = ?

(1) 549 ✔
(2) 545
(3) 645
(4) 649

Q.13 Seven boxes, F, I, L, T, E, R and S, are kept one over the other but not necessarily in the same order. Only R is kept above E. Only two boxes are kept between E and T.
Only I is kept below L. F is not kept immediately above T. How many boxes are kept between S and I?
सात बक्से, F, I, L, T, E, R और S, एक के ऊपर एक रखे गए हैं, लेकिन जरूरी नहीं कि इसी क्रम में हों। E के ऊपर केवल R रखा गया है। E और T के बीच केवल दो बक्से रखे गए हैं।
L के नीचे केवल I रखा गया है। F को T के ठीक ऊपर नहीं रखा गया है। S और I के बीच कितने बक्से रखे गए हैं?

(1) Three / तीन
(2) Four / चार
(3) One / एक
(4) Two / दो ✔

Q.14 L is the mother of E. E is the sister of M. O is the father of N. N is the husband of M.
How is O related to L?
L, E की माता है। E, M की बहन है। O, N का पिता है। N, M का पति है।
O का L से क्या संबंध है?

(1) Daughter's husband's father / पुत्री के पति का पिता ✔
(2) Daughter's husband / पुत्री का पति
(3) Daughter's husband's brother / पुत्री के पति का भाई
(4) Daughter's father / पुत्री का पिता

Q.15 Each of H, U, S, B, A, N and D has an exam on a different day of a week starting from Monday and ending on Sunday of the same week. Only three people have exams between B and H. Only three people have exams between A and S. D has an exam on some day before U and on some day after N. Only S has an exam after H. How many people have exam(s) after A?
H, U, S, B, A, N और D में से प्रत्येक की एक ही सप्ताह के सोमवार से शुरू होकर रविवार को समाप्त होने वाले सप्ताह के अलग-अलग दिन परीक्षा है। B और H के बीच केवल तीन लोगों की परीक्षाएँ हैं। A और S के बीच केवल तीन लोगों की परीक्षाएँ हैं। D की परीक्षा U से पहले किसी दिन और N के बाद किसी दिन है। H के बाद केवल S की परीक्षा है। A के बाद कितने लोगों की परीक्षा/परीक्षाएँ है/हैं?

(1) One / एक
(2) Two / दो
(3) Three / तीन
(4) Four / चार ✔

Q.16 Each of A, B, C, D, I, J and K has an exam on a different day of a week starting from Monday and ending on Sunday of the same week. Only three people have exams between C and I. Only three people have exams between J and D. B has exam on some day before K and on some day after A. Only D has exam after I. How many people have exams after J?
A, B, C, D, I, J और K में से प्रत्येक की एक ही सप्ताह के सोमवार से शुरू होकर रविवार को समाप्त होने वाले सप्ताह के अलग-अलग दिन परीक्षा है। C और I के बीच केवल तीन लोगों की परीक्षाएँ हैं। J और D के बीच केवल तीन लोगों की परीक्षाएँ हैं। B की परीक्षा K से पहले किसी दिन और A के बाद किसी दिन है। I के बाद केवल D की परीक्षा है। J के बाद कितने लोगों की परीक्षाएँ हैं?

(1) Three / तीन
(2) Two / दो
(3) One / एक
(4) Four / चार ✔

Q.17 Refer to the following letter series and answer the question that follows. Counting to be done from left to right only.
(Left) E D U J Y H B V G T I O J U E D S A I B C A D E Y I O L B S M C (Right)
How many such vowel are there each of which is immediately preceded by a consonant and also immediately followed by a consonant?
निम्नलिखित अक्षर श्रृंखला को देखिए और उसके बाद दिए गए प्रश्न का उत्तर दीजिए। गिनती केवल बाएँ से दाएँ की जानी है।
(बाएँ) E D U J Y H B V G T I O J U E D S A I B C A D E Y I O L B S M C (दाएँ)
ऐसे कितने स्वर हैं, जिनमें से प्रत्येक के ठीक पहले एक व्यंजन है और ठीक बाद में भी एक व्यंजन है?

(1) One / एक
(2) Three / तीन ✔
(3) None / एक भी नहीं
(4) Two / दो

Q.18 If the water source is placed along X-Y, as shown in the figure, which of the given options will be the water reflection of the given figure?

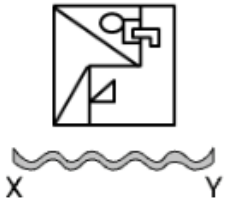

यदि जल स्रोत को आकृति में दर्शाए अनुसार X-Y के अनुदिश रखा जाए, तो दिए गए विकल्पों में से कौन-सा विकल्प दी गई आकृति का जल प्रतिबिंब होगा?

(1) 

(2) 

(3)  ✔

(4) 

Q.19 What should come in place of ? in the given series based on the English alphabetical order?
SWUN XBZS CGEX HLJC ?

अंग्रेज़ी वर्णमाला क्रम के आधार पर दी गई श्रृंखला में ? के स्थान पर क्या आना चाहिए?
SWUN XBZS CGEX HLJC ?

(1) MQSW
(2) MHYU
(3) **MQOH** ✔
(4) MOHQ

Q.20 In the following triads, each group of letters is related to the subsequent one following a certain logic. Select from the given options, the one which follows the same logic.
AMID - MIAD - DIMA EAST - ASET - TSAE

निम्नलिखित त्रिकों में, अक्षरों का प्रत्येक समूह एक निश्चित तर्क के अनुसार अपने बाद वाले समूह से संबंधित है। दिए गए विकल्पों में से उस विकल्प का चयन कीजिए जो समान तर्क का अनुसरण करता है।
AMID - MIAD - DIMA EAST - ASET - TSAE

(1) FROM - ROFM - ROMF
(2) **WEAR - EAWR - RAEW** ✔
(3) VAST - AVST - TASV
(4) OPEN - OEPN - NEPO

QuickSarkari.com | WhatsApp Channel | Telegram: t.me/quick_sarkari

General Awareness

Q.21 In which of the following years did NABARD initiate the pilot project for linking 500 groups in India?
निम्नलिखित में से किस वर्ष में नाबार्ड (NABARD) ने भारत में 500 समूहों को जोड़ने के लिए प्रायोगिक परियोजना (पायलट प्रोजेक्ट) शुरू की थी?

(1) 1995
(2) **1992 ✔**
(3) 1990
(4) 2000

Q.22 What was the title of the National Conference organised on Human Rights Day 2025?
मानवाधिकार दिवस 2025 पर आयोजित राष्ट्रीय सम्मेलन का विषय (शीर्षक) क्या था?

(1) Dignity, Freedom and Justice for All / सभी के लिए गरिमा, स्वतंत्रता और न्याय
(2) **Ensuring Everyday Essentials: Public Services and Dignity for All / रोज़मर्रा की आवश्यक वस्तुओं को सुनिश्चित करना: सभी के लिए सार्वजनिक सेवाएँ और गरिमा ✔**
(3) Human Rights 75: Public Services and Dignity for All / मानवाधिकार 75: सभी के लिए सार्वजनिक सेवाएँ और गरिमा
(4) Equality and Inclusion / समानता और समावेशन

Q.23 Match List I with List II
List I (Industry) List II (Location)
A. Visveswaraya Iron and Steel Plant I. Hirakud
B. Indian Aluminium Company Ltd. II. Sindri
C. Fertiliser Corporation of India Ltd. III. Pimpri
D. Hindustan Antibiotics Ltd. IV. Bhadravati
सूची I का सूची II से मिलान कीजिए
सूची I (उद्योग) सूची II (अवस्थिति)
A. विश्वेश्वरैया आयरन एंड स्टील प्लांट I. हीराकुड
B. इंडियन एल्युमिनियम कंपनी लिमिटेड II. सिंदरी
C. फर्टिलाइज़र कॉर्पोरेशन ऑफ इंडिया लिमिटेड III. पिंपरी
D. हिंदुस्तान एंटीबायोटिक्स लिमिटेड IV. भद्रावती

(1) **A - IV, B - I, C - II, D - III ✔**
(2) A - II, B - IV, C - I, D - III
(3) A - IV, B - II, C - I, D - III
(4) A - I, B - II, C - III, D - IV

Q.24 The concept of rural development includes the provision of basic services such as sanitation, water and electricity. What is the main objective of the Swachh Bharat Mission (Gramin)?
ग्रामीण विकास की अवधारणा में स्वच्छता, जल और बिजली जैसी बुनियादी सेवाओं का प्रावधान शामिल है। स्वच्छ भारत मिशन (ग्रामीण) का मुख्य उद्देश्य क्या है?

(1) **Open defecation free villages / खुले में शौच मुक्त गाँव ✔**
(2) Providing irrigation / सिंचाई उपलब्ध कराना
(3) Rural electrification / ग्रामीण विद्युतीकरण
(4) Providing gas connections / गैस कनेक्शन उपलब्ध कराना

Q.25 Which of the following buildings in Fatehpur Sikri is a fine example of ancient Indian architecture?
फतेहपुर सीकरी में स्थित निम्नलिखित में से कौन-सी इमारत प्राचीन भारतीय वास्तुकला का एक उत्कृष्ट उदाहरण है?

(1) Jodha Bai Palace / जोधाबाई महल ✔
(2) Dash Mahal / दश महल
(3) Hawa Mahal / हवा महल
(4) Raja Mahal / राजा महल

Q.26 The Kailasha monument at Ellora (near Aurangabad, Maharastra), viewed as a grand specimen of Rashtrakuta artistry, was erected under the patronage of which of the following kings?
एलोरा (औरंगाबाद, महाराष्ट्र के निकट) स्थित कैलाश स्मारक, जिसे राष्ट्रकूट कला का एक भव्य नमूना माना जाता है, निम्नलिखित में से किस राजा के संरक्षण में बनवाया गया था?

(1) Indra Varma / इंद्र वर्मा
(2) Vikramaditya / विक्रमादित्य
(3) Krishna II / कृष्ण द्वितीय
(4) Krishna I / कृष्ण प्रथम ✔

Q.27 Which Indian shooter secured her second individual gold medal in the women's 25 m standard pistol event at the ISSF Junior World Championship in 2024?
किस भारतीय निशानेबाज ने 2024 में ISSF जूनियर विश्व चैंपियनशिप में महिलाओं की 25 m स्टैंडर्ड पिस्टल स्पर्धा में अपना दूसरा व्यक्तिगत स्वर्ण पदक हासिल किया?

(1) Apurvi Chandela / अपूर्वी चंदेला
(2) Manu Bhaker / मनु भाकर
(3) Heena Sidhu / हीना सिद्धू
(4) Divanshi / दिवांशी ✔

Q.28 Which of the following is NOT a colligative property?
निम्नलिखित में से कौन-सा एक अणुसंख्यक (कोलिगेटिव) गुणधर्म नहीं है?

(1) Freezing point depression / हिमांक का अवनमन
(2) Relative lowering of vapour pressure / वाष्प दाब का आपेक्षिक अवनमन
(3) Elevation of freezing point / हिमांक का उन्नयन ✔
(4) Boiling point elevation / क्वथनांक का उन्नयन

Q.29 A population pyramid is used to show:
जनसंख्या पिरामिड का उपयोग किसे दर्शाने के लिए किया जाता है?

(1) Distribution of agricultural land / कृषि भूमि का वितरण
(2) Urban-rural migration patterns / शहरी-ग्रामीण प्रवासन प्रतिरूप
(3) Age and sex structure of the population / जनसंख्या की आयु और लिंग संरचना ✔
(4) Population density of countries / देशों का जनसंख्या घनत्व

Q.30 Who among the following was the founder of Chalukya's dynasty?
निम्नलिखित में से कौन चालुक्य वंश का संस्थापक था?

(1) Kirtivarman I / कीर्तिवर्मन प्रथम
(2) Rajendra II / राजेंद्र द्वितीय
(3) Pulakeshin I / पुलकेशिन प्रथम ✔
(4) Vikramaditya I / विक्रमादित्य प्रथम

Q.31 Which of the following statements is correct about the relationship of the State Council of Ministers with the Governor?

राज्य मंत्रिपरिषद के राज्यपाल के साथ संबंध के बारे में निम्नलिखित में से कौन-सा कथन सही है?

(1) They advise the Governor on governmental affairs. / वे शासकीय मामलों पर राज्यपाल को सलाह देते हैं। ✔

(2) They assist the Governor in drafting state laws. / वे राज्य के कानूनों का प्रारूप तैयार करने में राज्यपाल की सहायता करते हैं।

(3) They supervise the Governor's actions. / वे राज्यपाल के कार्यों का पर्यवेक्षण करते हैं।

(4) They hold office at the pleasure of the Governor. / वे राज्यपाल के प्रसादपर्यंत पद धारण करते हैं।

Q.32 Electric and magnetic fields are regarded as-------

विद्युत और चुंबकीय क्षेत्रों को ------- माना जाता है।

(1) Scalar quantities because they have only magnitude / अदिश राशियाँ, क्योंकि उनमें केवल परिमाण होता है

(2) Non-physical entities without measurable effects / मापने योग्य प्रभावों से रहित अभौतिक सत्ताएँ

(3) Independent phenomena with no relation / बिना किसी संबंध वाली स्वतंत्र परिघटनाएँ

(4) Vector quantities because they have both magnitude and direction / सदिश राशियाँ, क्योंकि उनमें परिमाण और दिशा दोनों होते हैं ✔

Q.33 The Union Budget 2025-2026 of India was presented by:

भारत का केंद्रीय बजट 2025-2026 किसके द्वारा प्रस्तुत किया गया था?

(1) Piyush Goyal / पीयूष गोयल

(2) Rajnath Singh / राजनाथ सिंह

(3) Amit Shah / अमित शाह

(4) Nirmala Sitharaman / निर्मला सीतारमण ✔

Q.34 Which peace agreement, signed on 26 October 2025, aimed to settle the border dispute between two Southeast Asian nations?

26 अक्टूबर 2025 को हस्ताक्षरित किस शांति समझौते का उद्देश्य दो दक्षिण-पूर्व एशियाई देशों के बीच सीमा विवाद का समाधान करना था?

(1) Schengen Peace Agreement / शेंगेन शांति समझौता

(2) Kuala Lumpur Peace Accord / कुआलालंपुर शांति समझौता ✔

(3) Kyoto Peace Protocol / क्योटो शांति प्रोटोकॉल

(4) Minsk Peace Protocol / मिन्स्क शांति प्रोटोकॉल

Q.35 Which Article of the Indian Constitution says that , there shall be a Minister in charge of tribal welfare in the States of Chhattisgarh, Jharkhand, Madhya Pradesh and Orissa?

भारतीय संविधान का कौन-सा अनुच्छेद कहता है कि छत्तीसगढ़, झारखंड, मध्य प्रदेश और ओडिशा राज्यों में जनजातियों के कल्याण का भारसाधक एक मंत्री होगा?

(1) Article 164 / अनुच्छेद 164 ✔

(2) Article 166 / अनुच्छेद 166

(3) Article 168 / अनुच्छेद 168

(4) Article 170 / अनुच्छेद 170

Q.36 Dadabhai Naoroji developed an economic explanation that became a key Indian argument against British domination; this idea is known as which of the following?

दादाभाई नौरोजी ने एक आर्थिक व्याख्या विकसित की जो ब्रिटिश प्रभुत्व के विरुद्ध एक प्रमुख भारतीय तर्क बन गई; इस विचार को निम्नलिखित में से किस नाम से जाना जाता है?

(1) Wealth-Export hypothesis / धन-निर्यात परिकल्पना

(2) **Drain-of-Wealth theory / धन-निष्कासन (ड्रेन ऑफ वेल्थ) सिद्धांत ✔**

(3) Imperial Drain concept / साम्राज्यवादी निष्कासन अवधारणा

(4) Economic Drain thesis / आर्थिक निष्कासन थीसिस

Q.37 Which of the following sculptures is a famous example of Harappan bronze art?

निम्नलिखित में से कौन-सी मूर्ति हड़प्पा कांस्य कला का एक प्रसिद्ध उदाहरण है?

(1) Mother Goddess / मातृदेवी

(2) Bearded Priest / दाढ़ी वाला पुजारी

(3) **Dancing Girl / नर्तकी (डांसिंग गर्ल) ✔**

(4) Bull Seal / वृषभ मुहर

Q.38 Which of the following indices does the Government of India employ to assess the employment situation in the country?

भारत सरकार देश में रोजगार की स्थिति का आकलन करने के लिए निम्नलिखित में से किस सूचकांक का उपयोग करती है?

(1) **Worker Population Ratio (WPR) / श्रमिक जनसंख्या अनुपात (WPR) ✔**

(2) Human Development Index (HDI) / मानव विकास सूचकांक (HDI)

(3) Gini Coefficient / गिनी गुणांक

(4) Consumer Price Index (CPI) / उपभोक्ता मूल्य सूचकांक (CPI)

Q.39 Which of the following is the main objective of the PM SVANidhi scheme?

पीएम स्वनिधि (PM SVANidhi) योजना का मुख्य उद्देश्य निम्नलिखित में से कौन-सा है?

(1) To provide support to Old Age Persons / वृद्ध व्यक्तियों को सहायता प्रदान करना

(2) **To provide financial support to street vendors for their business growth / रेहड़ी-पटरी विक्रेताओं को उनके व्यवसाय की वृद्धि के लिए वित्तीय सहायता प्रदान करना ✔**

(3) To provide accommodation support to shelterless people / आश्रयहीन लोगों को आवास सहायता प्रदान करना

(4) To provide free education to street vendors' children / रेहड़ी-पटरी विक्रेताओं के बच्चों को निःशुल्क शिक्षा प्रदान करना

Q.40 The Khelo India Para Games 2025 took place in _____.

खेलो इंडिया पैरा गेम्स 2025 _____ में आयोजित हुए।

(1) Bengaluru / बेंगलुरु

(2) Jaipur / जयपुर

(3) Lucknow / लखनऊ

(4) **New Delhi / नई दिल्ली ✔**

Arithmetical and Numerical Ability

Q.41 The average weight of a family of five members whose weights are 40 kg, 49 kg, 57 kg, 77 kg and 36 kg is:

पाँच सदस्यों वाले एक परिवार, जिनके भार 40 kg, 49 kg, 57 kg, 77 kg और 36 kg हैं, का औसत भार कितना है?

(1) 51.8 kg ✔

(2) 53.8 kg

(3) 52.8 kg

(4) 50.8 kg

Q.42 The selling price of 25 books is equal to the cost price of 27 books. Find the loss or gain percentage.

25 पुस्तकों का विक्रय मूल्य 27 पुस्तकों के क्रय मूल्य के बराबर है। हानि या लाभ प्रतिशत ज्ञात कीजिए।

(1) (100/2)% gain / (100/2)% लाभ

(2) 8% gain / 8% लाभ ✔

(3) 8% loss / 8% हानि

(4) (100/2)% loss / (100/2)% हानि

Q.43 A boat can travel at a speed of 21 km/hr in still water. If the speed of the stream is 3 km/hr, find the time taken by the boat to go 48 km downstream.

एक नाव शांत जल में 21 km/hr की चाल से चल सकती है। यदि धारा की चाल 3 km/hr है, तो नाव द्वारा धारा के अनुकूल 48 km जाने में लिया गया समय ज्ञात कीजिए।

(1) 2 hours 20 minutes / 2 घंटे 20 मिनट

(2) 2 hours / 2 घंटे ✔

(3) 3 hours 10 minutes / 3 घंटे 10 मिनट

(4) 3 hours / 3 घंटे

Q.44 Find the simple interest (in ₹) on ₹3500 as a sum borrowed at 7% per year rate of interest for 6 years.

₹3500 की उधार ली गई राशि पर 7% वार्षिक ब्याज दर से 6 वर्षों का साधारण ब्याज (₹ में) ज्ञात कीजिए।

(1) 1410

(2) 1430

(3) 1510

(4) 1470 ✔

Q.45 If $x^3y : xy :: xy : a$, then which of the options below gives the value of a?

यदि $x^3y : xy :: xy : a$ है, तो नीचे दिए गए विकल्पों में से कौन-सा a का मान देता है?

(1) y^2/x

(2) y/x ✔

(3) y/x^2

(4) y^2/x^2

Q.46 Find the diameter of a sphere whose surface area is $81\pi\ cm^2$.

उस गोले का व्यास ज्ञात कीजिए जिसका पृष्ठीय क्षेत्रफल $81\pi\ cm^2$ है।

(1) 10 cm

(2) 9 cm ✔

(3) 8 cm

(4) 11 cm

Q.47 The HCF and the LCM of two numbers are 18 and 360, respectively. If one of the numbers is 90, find the other one.

दो संख्याओं का HCF और LCM क्रमशः 18 और 360 है। यदि उनमें से एक संख्या 90 है, तो दूसरी संख्या ज्ञात कीजिए।

(1) 100

(2) 5

(3) 72 ✔

(4) 45

Q.48 By how much is 30% of 80 greater than 20% of 50?

80 का 30%, 50 के 20% से कितना अधिक है?

(1) 16

(2) 14 ✔

(3) 9

(4) 11

Q.49 Given that $22^{0.32} = x$, $22^{0.89} = y$ and $x^z = y^8$, then the value of z is close to:

दिया गया है कि $22^{0.32} = x$, $22^{0.89} = y$ और $x^z = y^8$ है, तो z का मान लगभग कितना है?

(1) 24.31

(2) 22.25 ✔

(3) 21.02

(4) 25.69

Q.50 In what ratio must a grocer mix two varieties of pulses costing ₹105 and ₹120 per kg, respectively, to get a mixture worth ₹106.50 kg?

एक पंसारी को क्रमशः ₹105 और ₹120 प्रति kg मूल्य वाली दालों की दो किस्मों को किस अनुपात में मिलाना चाहिए, ताकि ₹106.50 kg मूल्य का मिश्रण प्राप्त हो?

(1) 9 : 1 ✔

(2) 7 : 1

(3) 1 : 5

(4) 5 : 1

QuickSarkari.com | WhatsApp Channel | Telegram: t.me/quick_sarkari

Q.51 X and Y are partners in a business. X puts ₹85,737 and Y puts ₹57,158. X receives 8% of the profit for managing the business and the rest is divided in proportion to their capital. What does X get out of a profit of ₹37,875?

X और Y एक व्यवसाय में साझेदार हैं। X ₹85,737 और Y ₹57,158 लगाता है। X को व्यवसाय का प्रबंधन करने के लिए लाभ का 8% मिलता है और शेष लाभ उनकी पूँजी के अनुपात में बाँटा जाता है। ₹37,875 के लाभ में से X को कितना मिलता है?

(1) ₹23,892

(2) ₹23,889

(3) **₹23,937** ✔

(4) ₹23,979

Q.52 Pipe A can fill a tank in 45 minutes, while pipe B takes an hour to fill it up. Pipe A is opened first and starts filling the tank. After 18 minutes, pipe B is also opened. How many more minutes (rounded off to the next minute) are required to fill the tank completely?

पाइप A एक टंकी को 45 मिनट में भर सकता है, जबकि पाइप B को इसे भरने में एक घंटा लगता है। पहले पाइप A खोला जाता है और वह टंकी भरना शुरू करता है। 18 मिनट बाद पाइप B भी खोल दिया जाता है। टंकी को पूरी तरह भरने के लिए और कितने मिनट (अगले मिनट तक पूर्णांकित) की आवश्यकता होगी?

(1) 18 minutes / 18 मिनट

(2) 10 minutes / 10 मिनट

(3) 12 minutes / 12 मिनट

(4) **16 minutes / 16 मिनट** ✔

Q.53 An article is marked at ₹1,620 by a shopkeeper. He offers a discount of 10% on the marked price and still earns a profit of 20% on the cost price. Find the cost price of the article.

एक दुकानदार द्वारा एक वस्तु का अंकित मूल्य ₹1,620 रखा गया है। वह अंकित मूल्य पर 10% की छूट देता है और फिर भी क्रय मूल्य पर 20% का लाभ अर्जित करता है। वस्तु का क्रय मूल्य ज्ञात कीजिए।

(1) ₹1,251

(2) ₹1,278

(3) **₹1,215** ✔

(4) ₹1,198

Q.54 A metal pipe is 42 cm long. The inner diameter of its cross-section is 6 cm. The outer diameter is 6.4 cm. Its inner curved surface area is:
(Use π = 22/7)

एक धातु का पाइप 42 cm लंबा है। इसके अनुप्रस्थ काट का आंतरिक व्यास 6 cm है। बाहरी व्यास 6.4 cm है। इसका आंतरिक वक्र पृष्ठीय क्षेत्रफल कितना है?
(π = 22/7 का प्रयोग करें)

(1) 528 cm^2

(2) 892 cm^2

(3) **792 cm^2** ✔

(4) 968 cm^2

Q.55 A garrison of 1204 men has provisions for 24 days. How long (in days) will the provisions last if the garrison is increased to 2064 men?

1204 सैनिकों की एक सैन्य टुकड़ी के पास 24 दिनों के लिए रसद है। यदि टुकड़ी को बढ़ाकर 2064 सैनिक कर दिया जाए, तो रसद कितने दिनों तक चलेगी?

(1) 15

(2) 16

(3) 13

(4) **14** ✔

Q.56 A man sold two articles for ₹1,200 each. On one he gained 25% and on the other he lost 25%. What is his total profit or loss?

एक व्यक्ति ने दो वस्तुएँ ₹1,200 प्रत्येक में बेचीं। एक पर उसे 25% का लाभ हुआ और दूसरी पर 25% की हानि हुई। उसका कुल लाभ या हानि कितना है?

(1) **Loss of ₹160 / ₹160 की हानि** ✔

(2) Profit of ₹80 / ₹80 का लाभ

(3) Neither profit nor loss / न लाभ न हानि

(4) Loss of ₹80 / ₹80 की हानि

Q.57 The following line graph shows the number of students who joined a famous school in the academic years 2016, 2017, 2018, 2019 and 2020.

Find the approximate percentage increase in the number of students from the year 2018 to 2019.



निम्नलिखित रेखा ग्राफ शैक्षणिक वर्ष 2016, 2017, 2018, 2019 और 2020 में एक प्रसिद्ध विद्यालय में प्रवेश लेने वाले विद्यार्थियों की संख्या दर्शाता है।

वर्ष 2018 से 2019 तक विद्यार्थियों की संख्या में लगभग प्रतिशत वृद्धि ज्ञात कीजिए।

(1) 66.6%

(2) 21%

(3) 75%

(4) **31.5%** ✔

Q.58 David invested ₹57,500 in a bank. In two years how much compound interest (in ₹) will he get, considering annual compounding, if the rate of interest for the first year was 4% per annum and the rate for the second year was 3% per annum more than the first year?

डेविड ने एक बैंक में ₹57,500 निवेश किए। वार्षिक रूप से संयोजित होने पर, दो वर्षों में उसे कितना चक्रवृद्धि ब्याज (₹ में) प्राप्त होगा, यदि पहले वर्ष के लिए ब्याज दर 4% वार्षिक थी और दूसरे वर्ष के लिए दर पहले वर्ष से 3% वार्षिक अधिक थी?

(1) 6,486 ✔
(2) 6,736
(3) 6,136
(4) 6,286

Q.59 The sides of a rectangular field are 198 m and 175 m long. Its area is equal to the area of a circular field. What is the perimeter (in m) of the circular field?
(Take π = 22/7)

एक आयताकार खेत की भुजाएँ 198 m और 175 m लंबी हैं। इसका क्षेत्रफल एक वृत्ताकार खेत के क्षेत्रफल के बराबर है। वृत्ताकार खेत का परिमाप (m में) कितना है?
(π = 22/7 लीजिए)

(1) 667
(2) 654
(3) 660 ✔
(4) 658

Q.60 A car travels from city A to B. It covers the first 30% of the total distance at 40 km/h, the next 40% at 60 km/h, and the remaining distance at a speed which is 20% more than the average speed of the entire journey. If the total distance is 250 km, find the average speed (in km/h, and rounded off to the nearest integer) of the car for the whole journey.

एक कार शहर A से B तक यात्रा करती है। वह कुल दूरी का पहला 30% भाग 40 km/h की चाल से, अगला 40% भाग 60 km/h की चाल से, और शेष दूरी संपूर्ण यात्रा की औसत चाल से 20% अधिक चाल से तय करती है। यदि कुल दूरी 250 km है, तो पूरी यात्रा के लिए कार की औसत चाल (km/h में, और निकटतम पूर्णांक तक पूर्णांकित) ज्ञात कीजिए।

(1) 53 ✔
(2) 52
(3) 54
(4) 51

English Language and Comprehension

Q.61 Choose the misspelt word in the sentence.
The new intern was extremly knowledgeable, despite his young age.

(1) extremly ✔
(2) intern
(3) knowledgeable
(4) young

Q.62 Choose the option that best completes the sentence using an appropriate adverb.
She typed the report _____ to meet the submission deadline.

(1) neatly
(2) efficiently
(3) **quickly ✔**
(4) accurately

Q.63 Substitute the underlined part of the following sentence by choosing the correct proverb.
If you want something done, speak up! After all, the loudest complainer gets the attention.

(1) **the squeaky wheel gets the grease ✔**
(2) the early bird catches the worm
(3) the pen is mightier than the sword
(4) every cloud has a silver lining

Q.64 Choose the correctly spelled word that replaces the misspelled word in the sentence below.
The principal addressed the issue of indisipline firmly during the assembly.

(1) asembly
(2) **indiscipline ✔**
(3) adressed
(4) principle

Q.65 Select the most appropriate option to fill in the blank.
After a lot of discussion, they finally decided to _____ the hatchet and end their differences.

(1) fix
(2) resolve
(3) **bury ✔**
(4) settle

Q.66 Rearrange the following segments to form a coherent statement.
(P) but by taking a rickshaw, (Q) she missed the morning bus, (R) showing her punctuality (S) she managed to reach school on time,

(1) PRSQ
(2) **QPSR ✔**
(3) PQRS
(4) RSPQ

Q.67 In the given question, a statement divided into different segments is given. The first segment (A) is fixed, rearrange the other segments to form a coherent statement.
(A) After the floodwaters receded, the relief teams prioritized
(B) restoring clean water and sanitation to prevent outbreaks,
(C) distributing emergency rations to isolated households,
(D) and coordinating shelter for displaced families,
(E) while assessing infrastructure damage for long-term rebuilding.

(1) **ABCDE ✔**
(2) ADCBE
(3) ADECB
(4) AECBD

Q.68 Complete the following sentence by selecting the most appropriate option.
Do you mean Charlie Chaplin, _____ actor?

(1) that
(2) an
(3) a
(4) **the ✔**

Q.69 Choose the correct option to complete the sentence.
When you look at _____ stars in _____ sky, do you ever wonder about life elsewhere?

(1) the, a
(2) an, the
(3) **the, the ✔**
(4) a, a

Q.70 Choose the option that can be substituted for the expression: fear of food.

(1) Cynophobia
(2) Mysophobia
(3) **Cibophobia ✔**
(4) Phonophobia

Q.71 Select the option that is the most appropriate antonym of the highlighted word in the given sentence.
They believed in an eternal friendship that would last forever.

(1) perpetual
(2) **temporary ✔**
(3) immortal
(4) enduring

Q.72 Choose the correct option to complete the sentence.
The organisation ensures equal opportunities for all employees _____ their background or experience level.

(1) in spite of
(2) because of
(3) instead of
(4) **regardless of ✔**

Q.73 Select the option that is the most appropriate antonym of the underlined word in the given sentence.
The town experienced a rapid proliferation of new businesses.

(1) **depletion ✔**
(2) extension
(3) accession
(4) distension

QuickSarkari.com | WhatsApp Channel | Telegram: t.me/quick_sarkari

Q.74 Replace the highlighted word segment with the appropriate one-word substitute.
With a home library containing over five thousand volumes, it was clear that the professor was an/a individual who has a great love for books.

(1) stoic
(2) horticulturist
(3) **bibliophile ✔**
(4) pedestrian

Q.75 Choose the correct option to complete the sentence.
She studied diligently for weeks, _____ she still felt unprepared on the day of the exam.

(1) **but ✔**
(2) yet
(3) so
(4) and

Q.76

Read the given passage and answer the questions that follow.
Water security has emerged as a critical global concern as growing populations, climate change and unsustainable consumption place increasing pressure on freshwater resources. Many regions now face recurring shortages due to over-extraction of groundwater, inefficient irrigation practices and pollution of rivers and lakes. These challenges threaten not only drinking water supplies but also food production, public health and economic stability. Sustainable resource management seeks to address these risks by balancing present needs with long-term availability. Strategies such as rainwater harvesting, watershed protection and the reuse of treated wastewater can significantly improve resilience. Equally important is improving governance. Effective water management requires transparent policies, coordination across sectors and the involvement of local communities, who often possess valuable knowledge about regional water systems. Technology also plays a growing role. Data-driven monitoring, efficient irrigation systems and early-warning tools for droughts and floods help optimise water use and reduce waste. However, technology alone cannot ensure water security. Without behavioural change and equitable access, improvements may benefit only a few. Ensuring water security therefore depends on integrating environmental sustainability, social equity and responsible management to safeguard this vital resource for future generations.

What is the main aim of sustainable resource management?

(1) **Balancing present and future needs ✔**
(2) Increase in urban sanitation systems
(3) Over-extraction of groundwater
(4) Centralising water ownership and distribution

Q.77

Read the given passage and answer the questions that follow.
Water security has emerged as a critical global concern as growing populations, climate change and unsustainable consumption place increasing pressure on freshwater resources. Many regions now face recurring shortages due to over-extraction of groundwater, inefficient irrigation practices and pollution of rivers and lakes. These challenges threaten not only drinking water supplies but also food production, public health and economic stability. Sustainable resource management seeks to address these risks by balancing present needs with long-term availability. Strategies such as rainwater harvesting, watershed protection and the reuse of treated wastewater can significantly improve resilience. Equally important is improving governance. Effective water management requires transparent policies, coordination across sectors and the involvement of local communities, who often possess valuable knowledge about regional water systems. Technology also plays a growing role. Data-driven monitoring, efficient irrigation systems and early-warning tools for droughts and floods help optimise water use and reduce waste. However, technology alone cannot ensure water security. Without behavioural change and equitable access, improvements may benefit only a few. Ensuring water security therefore depends on integrating environmental sustainability, social equity and responsible management to safeguard this vital resource for future generations.

Which technological tool supports water management?

(1) Market forecasting tools
(2) Traditional irrigation channels
(3) Data-driven monitoring ✔
(4) Seasonal migration patterns

Q.78

Read the given passage and answer the questions that follow.
Water security has emerged as a critical global concern as growing populations, climate change and unsustainable consumption place increasing pressure on freshwater resources. Many regions now face recurring shortages due to over-extraction of groundwater, inefficient irrigation practices and pollution of rivers and lakes. These challenges threaten not only drinking water supplies but also food production, public health and economic stability. Sustainable resource management seeks to address these risks by balancing present needs with long-term availability. Strategies such as rainwater harvesting, watershed protection and the reuse of treated wastewater can significantly improve resilience. Equally important is improving governance. Effective water management requires transparent policies, coordination across sectors and the involvement of local communities, who often possess valuable knowledge about regional water systems. Technology also plays a growing role. Data-driven monitoring, efficient irrigation systems and early-warning tools for droughts and floods help optimise water use and reduce waste. However, technology alone cannot ensure water security. Without behavioural change and equitable access, improvements may benefit only a few. Ensuring water security therefore depends on integrating environmental sustainability, social equity and responsible management to safeguard this vital resource for future generations.

What inference can be drawn about water access?

(1) It must be equitable. ✔
(2) It requires privatisation.
(3) It improves automatically.
(4) It depends only on rainfall.

Q.79

Read the given passage and answer the questions that follow.
Water security has emerged as a critical global concern as growing populations, climate change and unsustainable consumption place increasing pressure on freshwater resources. Many regions now face recurring shortages due to over-extraction of groundwater, inefficient irrigation practices and pollution of rivers and lakes. These challenges threaten not only drinking water supplies but also food production, public health and economic stability. Sustainable resource management seeks to address these risks by balancing present needs with long-term availability. Strategies such as rainwater harvesting, watershed protection and the reuse of treated wastewater can significantly improve resilience. Equally important is improving governance. Effective water management requires transparent policies, coordination across sectors and the involvement of local communities, who often possess valuable knowledge about regional water systems. Technology also plays a growing role. Data-driven monitoring, efficient irrigation systems and early-warning tools for droughts and floods help optimise water use and reduce waste. However, technology alone cannot ensure water security. Without behavioural change and equitable access, improvements may benefit only a few. Ensuring water security therefore depends on integrating environmental sustainability, social equity and responsible management to safeguard this vital resource for future generations.

Identify the central theme of the passage:

(1) Sustainable management is essential for water security. ✔
(2) Technology alone can solve water problems.
(3) Climate change affects only rainfall.
(4) Water scarcity is unavoidable because governance is ineffective.

Q.80

Read the given passage and answer the questions that follow.
Water security has emerged as a critical global concern as growing populations, climate change and unsustainable consumption place increasing pressure on freshwater resources. Many regions now face recurring shortages due to over-extraction of groundwater, inefficient irrigation practices and pollution of rivers and lakes. These challenges threaten not only drinking water supplies but also food production, public health and economic stability. Sustainable resource management seeks to address these risks by balancing present needs with long-term availability. Strategies such as rainwater harvesting, watershed protection and the reuse of treated wastewater can significantly improve resilience. Equally important is improving governance. Effective water management requires transparent policies, coordination across sectors and the involvement of local communities, who often possess valuable knowledge about regional water systems. Technology also plays a growing role. Data-driven monitoring, efficient irrigation systems and early-warning tools for droughts and floods help optimise water use and reduce waste. However, technology alone cannot ensure water security. Without behavioural change and equitable access, improvements may benefit only a few. Ensuring water security therefore depends on integrating environmental sustainability, social equity and responsible management to safeguard this vital resource for future generations.

Identify the tone of the passage:

(1) Narrative
(2) Emotional
(3) Sarcastic
(4) Analytical ✔

Hindi Language and Comprehension

Q.81 दिए गए वाक्य के रिक्त स्थान में मूल क्रिया-विशेषण शब्द का प्रयोग करें - 'रीमा आज कार्यालय से चली गयी।

(1) काफी

(2) ठीक

(3) हरेक

(4) **अचानक ✔**

Q.82 दिये गये वाक्य के किस भाग में त्रुटि है?

साहित्यकार की लेखनी की परिक्षा पाठकों की संवेदनाओं को प्रभावित करने की क्षमता से होती है।

(1) प्रभावित करने की क्षमता से होती है।

(2) **लेखनी की परिक्षा ✔**

(3) पाठकों की संवेदनाओं को

(4) साहित्यकार की

Q.83 निम्नलिखित वाक्य में रेखांकित शब्द के विलोम शब्द का चयन दिए गए विकल्पों में से कीजिए- 'तिरस्कृत' को गले लगाना महानता है।

(1) **पुरस्कृत ✔**

(2) उत्प्रेरित

(3) निन्द्य

(4) विस्मृत

Q.84 'चिड़िया के ये बच्चे ----------हैं'। उपयुक्त विशेषण चुनकर वाक्य पूर्ण करें।

(1) चुगते

(2) बैठे

(3) उड़ते

(4) **नन्हे ✔**

Q.85 दिए गए वाक्य में उचित प्रेरणार्थक क्रिया शब्द का चयन करके रिक्त स्थान की पूर्ति करें - अधिकारियों ने नगरपालिका से सड़कों की मरम्मत के लिए कर्मचारियों को सामग्री ---------- --।

(1) **दिलवाई ✔**

(2) बनवाई

(3) करवाई

(4) सुझाई

Q.86 नीचे एक वाक्य के खंडों को अव्यवस्थित क्रम में लिखा गया है। उस विकल्प का चयन करिए जो वाक्य का सही क्रम बताता हो-

(a) और साहित्य के साथ

(b) गहरा सम्बन्ध है

(c) बहुत ही घनिष्ठ एवं

(d) राष्ट्रीयता का भाषा

(1) c,b,a,d

(2) b,c,d,a

(3) a,d,c,b

(4) **d,a,c,b ✔**

Q.87 निम्न में से वाक्य में रेखांकित शब्द का विलोम शब्द कौन-सा है ?
'तुलसीदास राम से अनुरक्त हैं।'

(1) विषाक्त
(2) अनुशासित
(3) अनुपालन
(4) **विरक्त ✔**

Q.88 बड़ी मिन्नतों के बाद उसने अपना मौन तोड़ा।
वाक्य में प्रयुक्त मौन शब्द का पर्यायवाची क्या है?

(1) **निस्तब्ध ✔**
(2) दीप्ति
(3) वसुंधरा
(4) पल्लव

Q.89 "जिसके हस्ताक्षर नीचे अंकित हैं" वाक्यांश के लिए निम्न में से कौनसा सार्थक शब्द है?

(1) **अधोहस्ताक्षरकर्ता ✔**
(2) प्रस्तावक
(3) साक्षी
(4) लेखक

Q.90 दिये गये वाक्य के किस भाग में त्रुटि है?
कृषि विज्ञान प्रदर्शिनी में किसानों को नई तकनीक और उपकरणों के बारे में जानकारी दी गई।

(1) जानकारी दी गई।
(2) किसानों को
(3) **कृषि विज्ञान प्रदर्शिनी में ✔**
(4) नई तकनीक और उपकरणों के बारे में

Q.91 निम्नलिखित वाक्य में रेखांकित शब्द के पर्यायवाची शब्द का चयन दिए गए विकल्पों में से कीजिए- पानी बीच 'मीन' पियासी।

(1) शिखी
(2) विभावरी
(3) **मत्स्य ✔**
(4) शायक

Q.92 उपयुक्त 'कारक' चिह्न का चयन कर रिक्त स्थान की पूर्ति कीजिए।
'रणधीर.....मार पड़ी है।'

(1) **को ✔**
(2) ने
(3) का
(4) में

Q.93 निम्नलिखित वाक्य के रिक्त स्थान में उचित कारक चिह्न का प्रयोग करें - 'छत सामान रख दो।'

(1) ने
(2) से
(3) के लिए
(4) **पर ✔**

Q.94 निम्नलिखित वाक्य में से वर्तनी त्रुटि की पहचान कर वाक्य को शुद्ध कीजिए।
'सास्त्रीजी, अपने सादगीपूर्ण जीवन और दृढ़ राष्ट्रभक्ति से देशवासियों के हृदय में अमिट स्थान बना चूके हैं।'

(1) सास्त्रीजी ✔
(2) राष्ट्रभक्ति
(3) दृढ़
(4) सादगीपूर्ण

Q.95 निम्नलिखित विकल्पों में से रेखांकित शब्द का विलोम पहचानिए।
'शिक्षा ही वह माध्यम है जिसके द्वारा व्यक्ति अपने जीवन का नहीं बल्कि पूरे समाज का उत्थान कर सकता है।'

(1) साकार
(2) अनिष्ट
(3) गोचर
(4) पतन ✔

Q.96

निम्नलिखित प्रश्नों के उत्तर गद्यांश के आधार पर दीजिए।
वर्धमान महावीर का जन्म ज्ञात्रि क्षत्रिय कुल में कुन्दग्राम नामक वैशाली के उपनगर में हुआ था । उनके पिता सिद्धार्थ एक धनधान्य-संपन्न मुखिया थे और उनकी माता त्रिशला वैशाली के लिच्छवि राजकुमार चेटक की बहन थीं। वर्धमान का विवाह उसकी चचेरी बहन यशोदा से हुआ था। यशोदा के गर्भ से उनकी एक पुत्री का जन्म हुआ था, जो उनके भतीजे जमाली से ब्याही गयी थी। महावीर ने तीस वर्ष की उम्र में अपना घर छोड़ दिया और वे केवल वर्षा ऋतु में विश्राम करते हुए एक संन्यासी के रूप में बारह साल तक भ्रमण करते रहे। तेरहवें साल में कठोर तपस्या और सतत साधना के उपरान्त उन्होंने ज़िम्भिका ग्राम के निकट रिजुपालिका नदी के तट पर एक साल वृछ के नीचे कैवल्य अथवा पूर्ण ज्ञान की प्राप्ति की। उन्होंने अपने जीवन के शेष बत्तीस साल जैन धर्म के प्रचार में और मगध तथा अंग में सन्यासियों को जैन संप्रदाय में संगठित करने में बिता दिये। लेकिन परवर्ती काल में जैन धर्म को गुजरात और राजस्थान में, उत्तर भारत के कुछ भागों में तथा मैसूर में अनुकूल वातावरण मिल गया।

गद्यांश के लिए उपयुक्त शीर्षक का चयन कीजिए।

(1) वर्धमान महावीर ✔
(2) गौतम बुद्ध
(3) रैदास
(4) गुरुगोविंद सिंह

Q.97

निम्नलिखित प्रश्नों के उत्तर गद्यांश के आधार पर दीजिए।
वर्धमान महावीर का जन्म ज्ञात्रि क्षत्रिय कुल में कुन्दग्राम नामक वैशाली के उपनगर में हुआ था । उनके पिता सिद्धार्थ एक धनधान्य-संपन्न मुखिया थे और उनकी माता त्रिशला वैशाली के लिच्छवि राजकुमार चेटक की बहन थीं। वर्धमान का विवाह उसकी चचेरी बहन यशोदा से हुआ था। यशोदा के गर्भ से उनकी एक पुत्री का जन्म हुआ था, जो उनके भतीजे जमाली से ब्याही गयी थी। महावीर ने तीस वर्ष की उम्र में अपना घर छोड़ दिया और वे केवल वर्षा ऋतु में विश्राम करते हुए एक संन्यासी के रूप में बारह साल तक भ्रमण करते रहे। तेरहवें साल में कठोर तपस्या और सतत साधना के उपरान्त उन्होंने ज़िम्भिका ग्राम के निकट रिजुपालिका नदी के तट पर एक साल वृछ के नीचे कैवल्य अथवा पूर्ण ज्ञान की प्राप्ति की। उन्होंने अपने जीवन के शेष बत्तीस साल जैन धर्म के प्रचार में और मगध तथा अंग में सन्यासियों को जैन संप्रदाय में संगठित करने में बिता दिये। लेकिन परवर्ती काल में जैन धर्म को गुजरात और राजस्थान में, उत्तर भारत के कुछ भागों में तथा मैसूर में अनुकूल वातावरण मिल गया।

निम्न में से महावीर का जन्म किस कुल में हुआ था ?

(1) अवर्ण कुल
(2) ब्राहमण कुल
(3) वैश्य कुल
(4) क्षत्रिय कुल ✔

Q.98

निम्नलिखित प्रश्नों के उत्तर गद्यांश के आधार पर दीजिए।
वर्धमान महावीर का जन्म ज्ञात्रि क्षत्रिय कुल में कुन्दग्राम नामक वैशाली के उपनगर में हुआ था । उनके पिता सिद्धार्थ एक धनधान्य-संपन्न मुखिया थे और उनकी माता त्रिशला वैशाली के लिच्छवि राजकुमार चेटक की बहन थीं। वर्धमान का विवाह उसकी चचेरी बहन यशोदा से हुआ था। यशोदा के गर्भ से उनकी एक पुत्री का जन्म हुआ था, जो उनके भतीजे जमाली से ब्याही गयी थी। महावीर ने तीस वर्ष की उम्र में अपना घर छोड़ दिया और वे केवल वर्षा ऋतु में विश्राम करते हुए एक संन्यासी के रूप में बारह साल तक भ्रमण करते रहे। तेरहवें साल में कठोर तपस्या और सतत साधना के उपरान्त उन्होंने ज़म्भिका ग्राम के निकट रिजुपालिका नदी के तट पर एक साल वृछ के नीचे कैवल्य अथवा पूर्ण ज्ञान की प्राप्ति की। उन्होंने अपने जीवन के शेष बत्तीस साल जैन धर्म के प्रचार में और मगध तथा अंग में सन्यासियों को जैन संप्रदाय में संगठित करने में बिता दिये। लेकिन परवर्ती काल में जैन धर्म को गुजरात और राजस्थान में, उत्तर भारत के कुछ भागों में तथा मैसूर में अनुकूल वातावरण मिल गया।

निम्न में से महावीर की माता त्रिशला किसकी बहन थीं?

(1) धनञ्जय की
(2) विष्णु गुप्त की
(3) **चेटक की ✔**
(4) चेखव की

Q.99

निम्नलिखित प्रश्नों के उत्तर गद्यांश के आधार पर दीजिए।
वर्धमान महावीर का जन्म ज्ञात्रि क्षत्रिय कुल में कुन्दग्राम नामक वैशाली के उपनगर में हुआ था । उनके पिता सिद्धार्थ एक धनधान्य-संपन्न मुखिया थे और उनकी माता त्रिशला वैशाली के लिच्छवि राजकुमार चेटक की बहन थीं। वर्धमान का विवाह उसकी चचेरी बहन यशोदा से हुआ था। यशोदा के गर्भ से उनकी एक पुत्री का जन्म हुआ था, जो उनके भतीजे जमाली से ब्याही गयी थी। महावीर ने तीस वर्ष की उम्र में अपना घर छोड़ दिया और वे केवल वर्षा ऋतु में विश्राम करते हुए एक संन्यासी के रूप में बारह साल तक भ्रमण करते रहे। तेरहवें साल में कठोर तपस्या और सतत साधना के उपरान्त उन्होंने ज़म्भिका ग्राम के निकट रिजुपालिका नदी के तट पर एक साल वृछ के नीचे कैवल्य अथवा पूर्ण ज्ञान की प्राप्ति की। उन्होंने अपने जीवन के शेष बत्तीस साल जैन धर्म के प्रचार में और मगध तथा अंग में सन्यासियों को जैन संप्रदाय में संगठित करने में बिता दिये। लेकिन परवर्ती काल में जैन धर्म को गुजरात और राजस्थान में, उत्तर भारत के कुछ भागों में तथा मैसूर में अनुकूल वातावरण मिल गया।

निम्न में से गद्यांश में प्रयुक्त 'भ्रमण' शब्द का अर्थ कौन-सा है ?

(1) **घूमना ✔**
(2) घमंड
(3) घमाशान
(4) घनघोर

Q.100

निम्नलिखित प्रश्नों के उत्तर गद्यांश के आधार पर दीजिए।
वर्धमान महावीर का जन्म ज्ञात्रि क्षत्रिय कुल में कुन्दग्राम नामक वैशाली के उपनगर में हुआ था । उनके पिता सिद्धार्थ एक धनधान्य-संपन्न मुखिया थे और उनकी माता त्रिशला वैशाली के लिच्छवि राजकुमार चेटक की बहन थीं। वर्धमान का विवाह उसकी चचेरी बहन यशोदा से हुआ था। यशोदा के गर्भ से उनकी एक पुत्री का जन्म हुआ था, जो उनके भतीजे जमाली से ब्याही गयी थी। महावीर ने तीस वर्ष की उम्र में अपना घर छोड़ दिया और वे केवल वर्षा ऋतु में विश्राम करते हुए एक संन्यासी के रूप में बारह साल तक भ्रमण करते रहे। तेरहवें साल में कठोर तपस्या और सतत साधना के उपरान्त उन्होंने ज़िम्भिका ग्राम के निकट रिजुपालिका नदी के तट पर एक साल वृछ के नीचे कैवल्य अथवा पूर्ण ज्ञान की प्राप्ति की। उन्होंने अपने जीवन के शेष बत्तीस साल जैन धर्म के प्रचार में और मगध तथा अंग में सन्यासियों को जैन संप्रदाय में संगठित करने में बिता दिये। लेकिन परवर्ती काल में जैन धर्म को गुजरात और राजस्थान में, उत्तर भारत के कुछ भागों में तथा मैसूर में अनुकूल वातावरण मिल गया।

निम्न में से गद्यांश में प्रयुक्त शब्द 'कठोर' का विलोम शब्द कौन-सा होगा ?

(1) दोयम
(2) **कोमल ✔**
(3) कमल
(4) सरल

Assistant Teacher (Primary) – PRT

Q.101 What principle should vocational curriculum follow to avoid gender stereotypes?
लैंगिक रूढ़ियों से बचने के लिए व्यावसायिक पाठ्यचर्या को किस सिद्धांत का पालन करना चाहिए?

(1) Caste purity standards / जातिगत शुद्धता के मानक
(2) **Freedom from gender roles / लैंगिक भूमिकाओं से मुक्ति ✔**
(3) Domestic roles for stability / स्थिरता के लिए घरेलू भूमिकाएँ
(4) Class-based skill use / वर्ग-आधारित कौशल उपयोग

Q.102 In the context of contemporary Indian society, how does the hierarchical caste system typically influence social mobility for individuals from marginalized backgrounds?
समकालीन भारतीय समाज के संदर्भ में, पदानुक्रमित जाति व्यवस्था सामान्यतः हाशिए की पृष्ठभूमि से आने वाले व्यक्तियों की सामाजिक गतिशीलता को किस प्रकार प्रभावित करती है?

(1) It creates equal opportunities for all individuals / यह सभी व्यक्तियों के लिए समान अवसर सृजित करती है
(2) **It often limits opportunities for upward mobility / यह प्रायः ऊर्ध्वगामी गतिशीलता के अवसरों को सीमित करती है ✔**
(3) It encourages cross-caste marriages widely / यह अंतर्जातीय विवाहों को व्यापक रूप से प्रोत्साहित करती है
(4) It makes professional achievement the only criterion / यह व्यावसायिक उपलब्धि को एकमात्र मानदंड बनाती है

Q.103 At what stage do children begin to show concern for a crying friend and start understanding concepts like "mine" and "yours"?
किस अवस्था में बच्चे रोते हुए मित्र के प्रति चिंता दिखाने लगते हैं और "मेरा" तथा "तुम्हारा" जैसी अवधारणाओं को समझने लगते हैं?

(1) 5 years old / 5 वर्ष की आयु
(2) 12 months old / 12 माह की आयु
(3) **3 years old / 3 वर्ष की आयु ✔**
(4) 6 months old / 6 माह की आयु

Q.104 A teenager posits that in the event of human colonisation of Mars, a new legislation would be required to safeguard its environment. This statement most accurately reflects which cognitive ability?
एक किशोर यह मत रखता है कि यदि मनुष्य मंगल ग्रह पर बस्तियाँ बसाते हैं, तो उसके पर्यावरण की सुरक्षा के लिए एक नए विधान की आवश्यकता होगी। यह कथन सबसे सटीक रूप से किस संज्ञानात्मक क्षमता को दर्शाता है?

(1) Abstract and hypothetical reasoning / अमूर्त और परिकल्पनात्मक तर्क ✔
(2) Preoperational symbolic function / पूर्व-संक्रियात्मक प्रतीकात्मक कार्य
(3) Egocentric speech / आत्मकेंद्रित वाणी
(4) Object permanence / वस्तु स्थायित्व

Q.105 A teenager begins to mimic the language and dress style of a famous celebrity seen frequently on television. This behavior is most closely associated with which means of socialization?
एक किशोर टेलीविज़न पर अक्सर दिखने वाली किसी प्रसिद्ध हस्ती की भाषा और पहनावे की शैली की नकल करने लगता है। यह व्यवहार समाजीकरण के किस साधन से सबसे अधिक संबंधित है?

(1) Peer acceptance / साथियों द्वारा स्वीकृति
(2) Religious teaching / धार्मिक शिक्षा
(3) Formal education / औपचारिक शिक्षा
(4) Imitation via media / मीडिया के माध्यम से अनुकरण ✔

Q.106 A school analyses learner needs, sets objectives, designs aligned learning activities, and evaluates outcomes. Which curriculum approach is this?
एक विद्यालय शिक्षार्थियों की आवश्यकताओं का विश्लेषण करता है, उद्देश्य निर्धारित करता है, उनके अनुरूप अधिगम गतिविधियाँ तैयार करता है और परिणामों का मूल्यांकन करता है। यह कौन-सा पाठ्यचर्या उपागम है?

(1) Content-centered approach focusing on material / सामग्री पर केंद्रित विषयवस्तु-केंद्रित उपागम
(2) Behavioural approach with pre-set goals and objectives / पूर्व-निर्धारित लक्ष्यों और उद्देश्यों वाला व्यवहारवादी उपागम ✔
(3) Learner-centered approach prioritizing interests / रुचियों को प्राथमिकता देने वाला शिक्षार्थी-केंद्रित उपागम
(4) Managerial approach led by school manager / विद्यालय प्रबंधक के नेतृत्व वाला प्रबंधकीय उपागम

Q.107 Peace education primarily seeks to promote:
शांति शिक्षा मुख्य रूप से किसे बढ़ावा देने का प्रयास करती है?

(1) Teach students to compete aggressively / विद्यार्थियों को आक्रामक रूप से प्रतिस्पर्धा करना सिखाना
(2) Encourage social divisions / सामाजिक विभाजनों को प्रोत्साहित करना
(3) Promote understanding and conflict resolution / आपसी समझ और संघर्ष समाधान को बढ़ावा देना ✔
(4) Focus only on military training / केवल सैन्य प्रशिक्षण पर ध्यान केंद्रित करना

Q.108 Which factor involves the impact of shared beliefs, customs, and traditions on personality?
किस कारक में व्यक्तित्व पर साझा विश्वासों, रीति-रिवाजों और परंपराओं का प्रभाव शामिल है?

(1) Cultural factors / सांस्कृतिक कारक ✔
(2) Social factors / सामाजिक कारक
(3) Genetic factors / आनुवंशिक कारक
(4) Economic factors / आर्थिक कारक

Q.109 What quality does peace and international understanding strengthen for democratic citizenship?
शांति और अंतर्राष्ट्रीय सद्भाव लोकतांत्रिक नागरिकता के लिए किस गुण को सुदृढ़ करते हैं?

(1) Focusing on material riches / भौतिक संपदा पर ध्यान केंद्रित करना
(2) Standardizing global culture / वैश्विक संस्कृति का मानकीकरण करना
(3) **Strengthening respect for human rights / मानवाधिकारों के प्रति सम्मान को सुदृढ़ करना ✔**
(4) Enhancing national competition / राष्ट्रीय प्रतिस्पर्धा को बढ़ाना

Q.110 What does national integration aim to inspire among individuals?
राष्ट्रीय एकीकरण का उद्देश्य व्यक्तियों में किस भावना को प्रेरित करना है?

(1) Encouraging sectarian interests / सांप्रदायिक हितों को प्रोत्साहित करना
(2) Promoting one's regional identity / अपनी क्षेत्रीय पहचान को बढ़ावा देना
(3) **Placing loyalty to the country above group loyalties / समूह के प्रति निष्ठा से ऊपर देश के प्रति निष्ठा को रखना ✔**
(4) Focusing solely on individual welfare / केवल व्यक्तिगत कल्याण पर ध्यान केंद्रित करना

Q.111 University Education Commission suggested that school education should:
विश्वविद्यालय शिक्षा आयोग ने सुझाव दिया कि विद्यालयी शिक्षा को:

(1) **Serve both students going to university and those entering work / विश्वविद्यालय जाने वाले विद्यार्थियों और कार्यक्षेत्र में प्रवेश करने वाले विद्यार्थियों, दोनों के लिए उपयोगी होना चाहिए ✔**
(2) Separate students strictly into academic and vocational tracks / विद्यार्थियों को कड़ाई से शैक्षणिक और व्यावसायिक धाराओं में अलग करना चाहिए
(3) Avoid vocational components to make strong in theory subjects / सैद्धांतिक विषयों में सुदृढ़ बनाने के लिए व्यावसायिक घटकों से बचना चाहिए
(4) Prepare only those who wish to enter university / केवल उन्हीं को तैयार करना चाहिए जो विश्वविद्यालय में प्रवेश लेना चाहते हैं

Q.112 Which of the following options best describes the concept of personality?
निम्नलिखित में से कौन-सा विकल्प व्यक्तित्व की अवधारणा का सबसे अच्छा वर्णन करता है?

(1) Only emotional traits of a person / किसी व्यक्ति के केवल भावनात्मक गुण
(2) The physical appearance of an individual / किसी व्यक्ति का शारीरिक रूप-रंग
(3) **Unique behavioural patterns / विशिष्ट व्यवहार प्रतिरूप ✔**
(4) Temporary mood changes / अस्थायी मनोदशा परिवर्तन

Q.113 Prioritizing Proximodistal development, which task sequence is best?
समीप-दूराभिमुख (प्रॉक्सिमोडिस्टल) विकास को प्राथमिकता देते हुए, कौन-सा कार्य अनुक्रम सबसे उपयुक्त है?

(1) Drawing circles, then painting / वृत्त बनाना, फिर चित्र में रंग भरना
(2) Sitting up, then neck control / बैठना, फिर गर्दन पर नियंत्रण
(3) Crawling, then standing / घुटनों के बल चलना, फिर खड़े होना
(4) **Throwing large ball, then writing / बड़ी गेंद फेंकना, फिर लिखना ✔**

Q.114 What is the required representation of parents in the School Management Committee as per the RTE Act?
RTE अधिनियम के अनुसार विद्यालय प्रबंधन समिति में माता-पिता का अपेक्षित प्रतिनिधित्व कितना है?

(1) **75% representation from parent members. / माता-पिता सदस्यों का 75% प्रतिनिधित्व। ✔**
(2) 25% representation from parent members. / माता-पिता सदस्यों का 25% प्रतिनिधित्व।
(3) 100% representation from parent members. / माता-पिता सदस्यों का 100% प्रतिनिधित्व।
(4) 50% representation from parent members. / माता-पिता सदस्यों का 50% प्रतिनिधित्व।

Q.115 Which factor is NOT responsible for the continued existence of the caste system in Indian society?
भारतीय समाज में जाति व्यवस्था के निरंतर अस्तित्व के लिए कौन-सा कारक उत्तरदायी नहीं है?

(1) Family upbringing enforcing endogamy and traditions / सजातीय विवाह और परंपराओं को लागू करने वाला पारिवारिक पालन-पोषण

(2) Equal opportunities for economic success across castes / सभी जातियों में आर्थिक सफलता के समान अवसर ✔

(3) Economic networks providing jobs within caste groups / जाति समूहों के भीतर रोजगार प्रदान करने वाले आर्थिक नेटवर्क

(4) Religious beliefs in karma and purity-pollution concepts / कर्म और शुद्धता-अशुद्धता (पवित्रता-प्रदूषण) की अवधारणाओं में धार्मिक विश्वास

Q.116 Which of the following best describes the nature of Indian society?
निम्नलिखित में से कौन-सा भारतीय समाज की प्रकृति का सबसे अच्छा वर्णन करता है?

(1) Uniform and monolithic / एकरूप और अखंड

(2) Homogeneous and isolated / समरूप और पृथक

(3) Diverse and pluralistic / विविध और बहुलवादी ✔

(4) Single-culture and multi-class / एकल-संस्कृति और बहु-वर्गीय

Q.117 A child refrains from cheating on a test primarily because they fear being caught and punished by the teacher. Which characteristic of moral development does this behavior best illustrate?
एक बच्चा परीक्षा में नकल करने से मुख्य रूप से इसलिए बचता है क्योंकि उसे शिक्षक द्वारा पकड़े जाने और दंडित किए जाने का डर है। यह व्यवहार नैतिक विकास की किस विशेषता को सबसे अच्छी तरह दर्शाता है?

(1) Following conscience in the post-conventional stage / उत्तर-परंपरागत अवस्था में अंतरात्मा का अनुसरण

(2) Desire to gain approval in the conventional stage / परंपरागत अवस्था में स्वीकृति प्राप्त करने की इच्छा

(3) Obedience to avoid punishment in the pre-conventional stage / पूर्व-परंपरागत अवस्था में दंड से बचने के लिए आज्ञापालन ✔

(4) Respect for rules in the conventional stage / परंपरागत अवस्था में नियमों के प्रति सम्मान

Q.118 Schemas in Piaget's theory are:
पियाजे के सिद्धांत में स्कीमा (Schemas) हैं:

(1) Organized ways understanding experience / अनुभव को समझने के संगठित तरीके ✔

(2) External objects shaping behaviour / व्यवहार को आकार देने वाली बाहरी वस्तुएँ

(3) Temporary rules used randomly / यादृच्छिक रूप से प्रयुक्त अस्थायी नियम

(4) Inborn actions without changes / बिना परिवर्तन वाली जन्मजात क्रियाएँ

Q.119 Which of the following best reflects the responsibility of local authorities under RTE-2009 regarding admission of out-of-school children?
विद्यालय से बाहर के बच्चों के प्रवेश के संबंध में RTE-2009 के अंतर्गत स्थानीय प्राधिकारियों के उत्तरदायित्व को निम्नलिखित में से कौन-सा सबसे अच्छी तरह दर्शाता है?

(1) Delegating responsibilities solely to state governments / उत्तरदायित्वों को केवल राज्य सरकारों को सौंपना

(2) Charging admission fees for all applicants within their jurisdiction / अपने अधिकार क्षेत्र के सभी आवेदकों से प्रवेश शुल्क लेना

(3) Restricting admissions to children with prior schooling / प्रवेश को केवल पूर्व में विद्यालय जा चुके बच्चों तक सीमित करना

(4) Identifying and enrolling all children within their jurisdiction / अपने अधिकार क्षेत्र के सभी बच्चों की पहचान करना और उनका नामांकन करना ✔

Q.120 Personality is best described as:

व्यक्तित्व का सबसे अच्छा वर्णन इस रूप में किया जाता है:

(1) Moral and ethical judgements about behaviour / व्यवहार के बारे में नैतिक और आचारिक निर्णय

(2) Inborn patterns of temperament alone / केवल स्वभाव के जन्मजात प्रतिरूप

(3) Temporary emotional states within an individual / किसी व्यक्ति के भीतर अस्थायी भावनात्मक अवस्थाएँ

(4) Relatively stable traits guiding behaviour / व्यवहार का मार्गदर्शन करने वाले अपेक्षाकृत स्थिर गुण ✓

Q.121 A teacher aims to foster critical thinking and language skills in an early literacy classroom. Which classroom practice best utilizes literature to achieve both these goals simultaneously?

एक शिक्षक प्रारंभिक साक्षरता कक्षा में आलोचनात्मक चिंतन और भाषा कौशल को विकसित करना चाहता है। इन दोनों लक्ष्यों को एक साथ प्राप्त करने के लिए कौन-सी कक्षा प्रक्रिया साहित्य का सबसे अच्छा उपयोग करती है?

(1) Having students copy sentences from storybooks / विद्यार्थियों से कहानी की पुस्तकों से वाक्य नकल करवाना

(2) Facilitating group discussions on characters' decisions in stories / कहानियों में पात्रों के निर्णयों पर समूह चर्चा को सुगम बनाना ✓

(3) Repeating rhymes aloud as a class / पूरी कक्षा द्वारा कविताओं को ज़ोर से दोहराना

(4) Drawing illustrations for favorite story scenes / पसंदीदा कहानी के दृश्यों के लिए चित्र बनाना

Q.122 Which of the following best describes experiential learning?

निम्नलिखित में से कौन-सा अनुभवात्मक अधिगम का सबसे अच्छा वर्णन करता है?

(1) Learning only from textbooks / केवल पाठ्यपुस्तकों से सीखना

(2) Learning by listening to lectures / व्याख्यान सुनकर सीखना

(3) Learning by rote memorization / रटकर याद करके सीखना

(4) Learning through direct experience and reflection / प्रत्यक्ष अनुभव और चिंतन के माध्यम से सीखना ✓

Q.123 A group member who consistently encourages quieter members to participate demonstrates which positive group pattern?

समूह का एक सदस्य जो कम बोलने वाले सदस्यों को भाग लेने के लिए लगातार प्रोत्साहित करता है, वह किस सकारात्मक समूह प्रतिरूप को प्रदर्शित करता है?

(1) Inclusiveness / समावेशिता ✓

(2) Confrontation / टकराव

(3) Withdrawal / अलगाव

(4) Competition / प्रतिस्पर्धा

Q.124 Which of the following activities can be done in teaching fiction in the class?

(1) Visualization (2) Suggestion (3) Rewrite (4) Prediction

कक्षा में कथा-साहित्य के शिक्षण में निम्नलिखित में से कौन-सी गतिविधियाँ की जा सकती हैं?

(1) कल्पनाचित्रण (2) सुझाव (3) पुनर्लेखन (4) पूर्वानुमान

(1) (1), (2), (3) and (4) / (1), (2), (3) और (4) ✓

(2) Only (2) / केवल (2)

(3) Only (3) / केवल (3)

(4) Only (1) / केवल (1)

Q.125 The monitorial system is an early form of peer tutoring where:

मॉनिटोरियल प्रणाली सहपाठी शिक्षण का एक प्रारंभिक रूप है, जिसमें:

(1) Bright students teach lessons to other students / प्रतिभाशाली विद्यार्थी अन्य विद्यार्थियों को पाठ पढ़ाते हैं ✓

(2) Parents supervise classroom activities / माता-पिता कक्षा गतिविधियों का पर्यवेक्षण करते हैं

(3) Teachers teach only one class at a time / शिक्षक एक समय में केवल एक कक्षा को पढ़ाते हैं

(4) Teachers teach only small classes / शिक्षक केवल छोटी कक्षाओं को पढ़ाते हैं

Q.126 Why is it important to use multiple sources when assessing early literacy development in children?

बच्चों में प्रारंभिक साक्षरता विकास का आकलन करते समय अनेक स्रोतों का उपयोग करना क्यों महत्वपूर्ण है?

(1) It eliminates the need for teacher input / यह शिक्षक के योगदान की आवश्यकता को समाप्त कर देता है

(2) It captures diverse skills and reduces bias / यह विविध कौशलों को दर्ज करता है और पूर्वाग्रह को कम करता है ✓

(3) It ensures that only the highest scores are recorded / यह सुनिश्चित करता है कि केवल उच्चतम अंक ही दर्ज किए जाएँ

(4) It makes assessment faster and easier / यह आकलन को तेज़ और आसान बनाता है

Q.127 How does the maxim 'Whole to Part' suggest presenting educational material?

'पूर्ण से अंश की ओर' (Whole to Part) सूत्र शैक्षिक सामग्री को किस प्रकार प्रस्तुत करने का सुझाव देता है?

(1) Focus on partitioning complex knowledge / जटिल ज्ञान को विभाजित करने पर ध्यान केंद्रित करना

(2) Begin with specific statements / विशिष्ट कथनों से शुरुआत करना

(3) Start with the complete scenario / संपूर्ण परिदृश्य से शुरुआत करना ✓

(4) Prioritize direct experiences / प्रत्यक्ष अनुभवों को प्राथमिकता देना

Q.128 Observation is often undervalued because:

अवलोकन को प्रायः कम महत्व दिया जाता है क्योंकि:

(1) Modern education emphasises reading and writing over perceptual skills / आधुनिक शिक्षा प्रत्यक्षण कौशलों की तुलना में पढ़ने और लिखने पर अधिक बल देती है ✓

(2) Teachers receive special incentives only for teaching observation / शिक्षकों को केवल अवलोकन सिखाने के लिए विशेष प्रोत्साहन मिलते हैं

(3) Observation is considered too difficult for students to learn in classrooms / अवलोकन को विद्यार्थियों के लिए कक्षाओं में सीखना बहुत कठिन माना जाता है

(4) Most professions do not require developed observational abilities / अधिकांश व्यवसायों में विकसित अवलोकन क्षमताओं की आवश्यकता नहीं होती

Q.129 A teacher wants to foster a love for reading and improve language skills in her classroom. Which classroom practice aligns best with the role of literature in language learning?

एक शिक्षिका अपनी कक्षा में पढ़ने के प्रति प्रेम विकसित करना और भाषा कौशल में सुधार करना चाहती है। कौन-सी कक्षा प्रक्रिया भाषा अधिगम में साहित्य की भूमिका के साथ सबसे अधिक मेल खाती है?

(1) Focusing exclusively on grammar exercises and sentence correction drills. / केवल व्याकरण अभ्यासों और वाक्य शुद्धि अभ्यासों पर ध्यान केंद्रित करना।

(2) Encouraging students to read stories and discuss characters, themes, and ideas aloud. / विद्यार्थियों को कहानियाँ पढ़ने और पात्रों, विषयों तथा विचारों पर खुलकर चर्चा करने के लिए प्रोत्साहित करना। ✓

(3) Using only textbooks for reading comprehension without creative or imaginative texts. / रचनात्मक या कल्पनाशील पाठों के बिना पठन बोध के लिए केवल पाठ्यपुस्तकों का उपयोग करना।

(4) Assigning students to memorize long lists of vocabulary words without context. / विद्यार्थियों को बिना संदर्भ के शब्दावली के शब्दों की लंबी सूचियाँ याद करने का कार्य देना।

Q.130 Which key characteristic is shared by all cultural icons according to the stricter parameters of iconicity?
प्रतिमात्मकता (iconicity) के अधिक कठोर मानदंडों के अनुसार सभी सांस्कृतिक प्रतीकों (आइकॉन) में कौन-सी प्रमुख विशेषता समान होती है?

(1) They must be unique to individuals. / उन्हें व्यक्तियों के लिए अद्वितीय होना चाहिए।
(2) They rely exclusively on aural symbolism. / वे केवल श्रव्य प्रतीकवाद पर निर्भर करते हैं।
(3) They are always images. / वे सदैव छवियाँ होते हैं। ✔
(4) They are always associated with historical events. / वे सदैव ऐतिहासिक घटनाओं से जुड़े होते हैं।

Q.131 Understanding how family, school, and media influence behaviour best illustrates sociology's study of:
परिवार, विद्यालय और मीडिया व्यवहार को कैसे प्रभावित करते हैं, इसे समझना समाजशास्त्र के किस अध्ययन को सबसे अच्छी तरह दर्शाता है?

(1) Social norms / सामाजिक मानदंड
(2) Social values / सामाजिक मूल्य
(3) Social institutions / सामाजिक संस्थाएँ ✔
(4) Social relationships / सामाजिक संबंध

Q.132 In a classroom where students participate in role-play based on a story's characters, which literacy skills are primarily being developed through this activity?
एक कक्षा में, जहाँ विद्यार्थी किसी कहानी के पात्रों पर आधारित भूमिका-निर्वाह (रोल-प्ले) में भाग लेते हैं, इस गतिविधि के माध्यम से मुख्य रूप से कौन-से साक्षरता कौशल विकसित हो रहे हैं?

(1) Physical coordination and athletic skills are improved. / शारीरिक समन्वय और खेल कौशल में सुधार होता है।
(2) Scientific observation and classification abilities are enhanced. / वैज्ञानिक अवलोकन और वर्गीकरण क्षमताएँ बढ़ती हैं।
(3) Numerical reasoning and calculation skills are practiced. / संख्यात्मक तर्क और गणना कौशल का अभ्यास होता है।
(4) Speaking, listening, and empathy skills are strengthened. / बोलने, सुनने और समानुभूति के कौशल सुदृढ़ होते हैं। ✔

Q.133 A teacher wants to introduce a mindfulness approach to help students manage exam-related stress. She begins each class with a brief activity where students close their eyes, focus on their breath, and silently notice any bodily sensations without reacting. Which mindfulness component is most directly being engaged in this scenario?
एक शिक्षिका विद्यार्थियों को परीक्षा संबंधी तनाव को प्रबंधित करने में सहायता के लिए सचेतनता (माइंडफुलनेस) दृष्टिकोण शुरू करना चाहती है। वह प्रत्येक कक्षा की शुरुआत एक संक्षिप्त गतिविधि से करती है, जिसमें विद्यार्थी अपनी आँखें बंद करते हैं, अपनी श्वास पर ध्यान केंद्रित करते हैं और बिना प्रतिक्रिया किए किसी भी शारीरिक संवेदना को चुपचाप महसूस करते हैं। इस परिदृश्य में सचेतनता के किस घटक को सबसे प्रत्यक्ष रूप से संलग्न किया जा रहा है?

(1) Striving is being engaged as students focus on their breath and bodily sensations. / प्रयास (Striving) संलग्न हो रहा है, क्योंकि विद्यार्थी अपनी श्वास और शारीरिक संवेदनाओं पर ध्यान केंद्रित करते हैं।
(2) Judgment is being engaged as students focus on their breath and bodily sensations. / निर्णय (Judgment) संलग्न हो रहा है, क्योंकि विद्यार्थी अपनी श्वास और शारीरिक संवेदनाओं पर ध्यान केंद्रित करते हैं।
(3) Intention is being engaged as students focus on their breath and bodily sensations. / आशय (Intention) संलग्न हो रहा है, क्योंकि विद्यार्थी अपनी श्वास और शारीरिक संवेदनाओं पर ध्यान केंद्रित करते हैं।
(4) Attention is being engaged as students focus on their breath and bodily sensations. / ध्यान (Attention) संलग्न हो रहा है, क्योंकि विद्यार्थी अपनी श्वास और शारीरिक संवेदनाओं पर ध्यान केंद्रित करते हैं। ✔

Q.134 How does journal writing foster critical thinking in the process of self- understanding?
आत्म-बोध की प्रक्रिया में डायरी (जर्नल) लेखन आलोचनात्मक चिंतन को कैसे बढ़ावा देता है?

(1) By copying journal entries from peers. / साथियों की डायरी प्रविष्टियों की नकल करके।
(2) By focusing only on future goals without reflection. / चिंतन के बिना केवल भविष्य के लक्ष्यों पर ध्यान केंद्रित करके।
(3) **By encouraging analysis of one's beliefs and decisions. / अपनी मान्यताओं और निर्णयों के विश्लेषण को प्रोत्साहित करके। ✔**
(4) By describing daily events without questioning them. / दैनिक घटनाओं पर प्रश्न किए बिना उनका वर्णन करके।

Q.135 Why should a lesson plan include specific activities for both introduction and conclusion of a lesson?
पाठ योजना में पाठ की प्रस्तावना और समापन, दोनों के लिए विशिष्ट गतिविधियाँ क्यों शामिल होनी चाहिए?

(1) To reduce teacher's burden and talk time / शिक्षक के भार और बोलने के समय को कम करने के लिए
(2) To maximize homework assignments / गृहकार्य को अधिकतम करने के लिए
(3) To manage student attendance on priority basis / प्राथमिकता के आधार पर विद्यार्थियों की उपस्थिति का प्रबंधन करने के लिए
(4) **To frame learning and reinforce key concepts / अधिगम को एक ढाँचा देने और प्रमुख अवधारणाओं को सुदृढ़ करने के लिए ✔**

Q.136 Young children acquire their first language primarily through continuous exposure, meaningful interaction, and participation in everyday home communication. This process is termed:
छोटे बच्चे अपनी पहली भाषा मुख्य रूप से निरंतर संपर्क, सार्थक अंतःक्रिया और रोज़मर्रा के घरेलू संवाद में भागीदारी के माध्यम से अर्जित करते हैं। इस प्रक्रिया को कहा जाता है:

(1) Structured grammar instruction / संरचित व्याकरण अनुदेशन
(2) **Natural language acquisition / स्वाभाविक भाषा अर्जन ✔**
(3) Controlled vocabulary training / नियंत्रित शब्दावली प्रशिक्षण
(4) Formal language learning / औपचारिक भाषा अधिगम

Q.137 Which term best describes being conscious of thoughts and feelings during class activities?
कक्षा गतिविधियों के दौरान अपने विचारों और भावनाओं के प्रति सचेत रहने का सबसे अच्छा वर्णन कौन-सा शब्द करता है?

(1) Competition / प्रतिस्पर्धा
(2) Discipline / अनुशासन
(3) Repetition / पुनरावृत्ति
(4) **Self-awareness / आत्म-जागरूकता ✔**

Q.138 What does Piaget's concept of 'conservation' refer to?
पियाजे की 'संरक्षण' (conservation) की अवधारणा किसे संदर्भित करती है?

(1) Linking numbers to objects / संख्याओं को वस्तुओं से जोड़ना
(2) Performing complex calculations / जटिल गणनाएँ करना
(3) Ability to count objects correctly / वस्तुओं को सही ढंग से गिनने की क्षमता
(4) **Understanding that quantity remains the same despite changes in shape or appearance / यह समझना कि आकार या रूप में परिवर्तन के बावजूद मात्रा समान रहती है ✔**

Q.139 According to Auguste Comte, what does the term 'sociology' primarily refer to?

ऑगस्ट कॉम्टे के अनुसार, 'समाजशास्त्र' शब्द मुख्य रूप से किसे संदर्भित करता है?

(1) Application of economic method in studying society and individual / समाज और व्यक्ति के अध्ययन में आर्थिक पद्धति का अनुप्रयोग

(2) Application of scientific method in studying society and individual / समाज और व्यक्ति के अध्ययन में वैज्ञानिक पद्धति का अनुप्रयोग ✔

(3) Application of political method in studying society and individual / समाज और व्यक्ति के अध्ययन में राजनीतिक पद्धति का अनुप्रयोग

(4) Application of artistic method in studying society and individual / समाज और व्यक्ति के अध्ययन में कलात्मक पद्धति का अनुप्रयोग

Q.140 Identify the option that most accurately reflects the nuanced application of principles in classroom instruction.

उस विकल्प की पहचान कीजिए जो कक्षा अनुदेश में सिद्धांतों के सूक्ष्म (nuanced) अनुप्रयोग को सबसे यथार्थ रूप से दर्शाता है।

(1) Presenting topics unpredictably strengthens learners' independent reasoning ability. / विषयों को अप्रत्याशित रूप से प्रस्तुत करने से शिक्षार्थियों की स्वतंत्र तर्क क्षमता मजबूत होती है।

(2) Reducing the connections between lessons during instruction promotes focus. / अनुदेश के दौरान पाठों के बीच संबंधों को कम करने से ध्यान केंद्रित करने में बढ़ावा मिलता है।

(3) Sequencing considerations ensure that learners integrate concepts with conceptual continuity. / अनुक्रमण विचार यह सुनिश्चित करते हैं कि शिक्षार्थी अवधारणाओं को वैचारिक निरंतरता के साथ समेकित करते हैं। ✔

(4) Presenting content uniformly allows learners to adapt without any structured guidance. / विषयवस्तु को एकसमान रूप से प्रस्तुत करने से शिक्षार्थी बिना किसी संरचित निर्देशन के अनुकूलन कर सकते हैं।

Q.141 Why is the practice of ending cheating during examinations and stopping teachers from taking tuitions considered a milestone?

परीक्षाओं के दौरान नकल को समाप्त करने और शिक्षकों को ट्यूशन लेने से रोकने की प्रथा को एक मील का पत्थर क्यों माना जाता है?

(1) It aims to improve teaching skills and educational quality / इसका उद्देश्य शिक्षण कौशल और शैक्षिक गुणवत्ता में सुधार करना है ✔

(2) It reduces the need for additional teacher training or instructional support / यह अतिरिक्त शिक्षक प्रशिक्षण या अनुदेशात्मक सहायता की आवश्यकता को कम करता है

(3) It decreases the number of students / यह विद्यार्थियों की संख्या को कम करता है

(4) It allows schools to restructure schedules and classroom time more flexibly / यह विद्यालयों को समय-सारणी और कक्षा के समय को अधिक लचीले ढंग से पुनर्गठित करने की अनुमति देता है

Q.142 In an Indian English classroom, students are encouraged to code-switch between Hindi and English when explaining grammar patterns. This practice best exemplifies which strategy from the context?

एक भारतीय अंग्रेज़ी कक्षा में, विद्यार्थियों को व्याकरण प्रतिरूपों की व्याख्या करते समय हिंदी और अंग्रेज़ी के बीच कोड-स्विच करने के लिए प्रोत्साहित किया जाता है। यह प्रक्रिया संदर्भ में दी गई किस रणनीति का सबसे अच्छा उदाहरण है?

(1) Multilingual scaffolding to support meaning-making / अर्थ-निर्माण में सहायता के लिए बहुभाषी पाड़ (स्कैफोल्डिंग) ✔

(2) Focusing exclusively on formal written English / केवल औपचारिक लिखित अंग्रेज़ी पर ध्यान केंद्रित करना

(3) Drill-based memorization for error-free performance / त्रुटि-रहित प्रदर्शन के लिए अभ्यास-आधारित रटना

(4) Strict correction to eliminate Indianisms / भारतीयतावाद (Indianisms) को समाप्त करने के लिए कठोर सुधार

Q.143 Which of the following is the main personal quality required for an effective facilitator in problem-based learning?

समस्या-आधारित अधिगम में एक प्रभावी सुगमकर्ता के लिए आवश्यक मुख्य व्यक्तिगत गुण निम्नलिखित में से कौन-सा है?

(1) Experience in textbook writing / पाठ्यपुस्तक लेखन का अनुभव

(2) Advanced computer skills / उन्नत कंप्यूटर कौशल

(3) Strict adherence to traditional methods / पारंपरिक पद्धतियों का कठोरता से पालन

(4) **Content knowledge and competence / विषयवस्तु का ज्ञान और सक्षमता ✓**

Q.144 Which play type best encourages social negotiation and conflict resolution skills among peers?

कौन-सा खेल प्रकार साथियों के बीच सामाजिक समझौता-वार्ता और संघर्ष समाधान कौशलों को सबसे अधिक प्रोत्साहित करता है?

(1) Parallel play / समानांतर खेल

(2) Associative play / साहचर्य खेल

(3) **Cooperative play / सहयोगात्मक खेल ✓**

(4) Solitary play / एकाकी खेल

Q.145 According to Piaget, at which developmental stage does children understand numbers through concrete objects?

पियाजे के अनुसार, विकास की किस अवस्था में बच्चे मूर्त वस्तुओं के माध्यम से संख्याओं को समझते हैं?

(1) Preoperational stage / पूर्व-संक्रियात्मक अवस्था

(2) Sensorimotor stage / संवेदी-गामक अवस्था

(3) Formal operational stage / औपचारिक संक्रियात्मक अवस्था

(4) **Concrete operations stage / मूर्त संक्रियात्मक अवस्था ✓**

Q.146 Which statement best describes parallel play in children's development?

बच्चों के विकास में समानांतर खेल का सबसे अच्छा वर्णन कौन-सा कथन करता है?

(1) Children interact socially but without organized structure or goals. / बच्चे सामाजिक रूप से अंतःक्रिया करते हैं, लेकिन बिना किसी संगठित संरचना या लक्ष्यों के।

(2) Children play independently without any contact with other children. / बच्चे अन्य बच्चों के साथ बिना किसी संपर्क के स्वतंत्र रूप से खेलते हैं।

(3) **Children play alongside each other using similar toys but without interaction. / बच्चे समान खिलौनों का उपयोग करते हुए एक-दूसरे के साथ-साथ खेलते हैं, लेकिन बिना अंतःक्रिया के। ✓**

(4) Children work together toward a common goal with shared materials. / बच्चे साझा सामग्री के साथ एक साझा लक्ष्य की ओर मिलकर कार्य करते हैं।

Q.147 How do alternative schools fundamentally differ from traditional schools based on their core beliefs?

अपनी मूल मान्यताओं के आधार पर वैकल्पिक विद्यालय पारंपरिक विद्यालयों से मूलतः किस प्रकार भिन्न होते हैं?

(1) They do not allow flexible programs for learners from diverse context. / वे विविध संदर्भों से आने वाले शिक्षार्थियों के लिए लचीले कार्यक्रमों की अनुमति नहीं देते।

(2) They require all students to study at the same rate with same syllabus. / वे सभी विद्यार्थियों से एक ही पाठ्यक्रम के साथ एक ही गति से अध्ययन करने की अपेक्षा करते हैं।

(3) **They believe all students are of value and need to find positive qualities. / वे मानते हैं कि सभी विद्यार्थी मूल्यवान हैं और उनके सकारात्मक गुणों को खोजने की आवश्यकता है। ✓**

(4) They focus on academic excellence of children as a core objective. / वे एक मूल उद्देश्य के रूप में बच्चों की शैक्षणिक उत्कृष्टता पर ध्यान केंद्रित करते हैं।

Q.148 A teacher observes that some students feel anxious during math lessons and are reluctant to participate. She introduces math games and collaborative activities to make lessons more enjoyable. Which objective is the teacher primarily targeting?

एक शिक्षिका देखती है कि कुछ विद्यार्थी गणित के पाठों के दौरान चिंतित महसूस करते हैं और भाग लेने में संकोच करते हैं। वह पाठों को अधिक आनंददायक बनाने के लिए गणितीय खेल और सहयोगात्मक गतिविधियाँ शुरू करती है। शिक्षिका मुख्य रूप से किस उद्देश्य को लक्षित कर रही है?

(1) Strengthening measurement skills / मापन कौशलों को सुदृढ़ करना

(2) Enhancing computational accuracy / अभिकलनात्मक सटीकता को बढ़ाना

(3) Promoting advanced algebraic concepts / उन्नत बीजगणितीय अवधारणाओं को बढ़ावा देना

(4) **Development of interest and positive attitude / रुचि और सकारात्मक अभिवृत्ति का विकास ✔**

Q.149 A student tries several methods to solve a difficult mathematics problem. After making repeated mistakes, he finally finds the correct solution and uses the same method in similar problems later. This learning best illustrates:

एक विद्यार्थी गणित की एक कठिन समस्या को हल करने के लिए कई विधियाँ आज़माता है। बार-बार गलतियाँ करने के बाद, अंततः वह सही हल खोज लेता है और बाद में समान समस्याओं में उसी विधि का उपयोग करता है। यह अधिगम सबसे अच्छी तरह किसे दर्शाता है?

(1) **Trial-and-error learning / प्रयास और त्रुटि द्वारा अधिगम ✔**

(2) Insight learning / अंतर्दृष्टि द्वारा अधिगम

(3) Observational learning / अवलोकनात्मक अधिगम

(4) Rote memorization / रटकर याद करना

Q.150 Which sentence correctly uses subject-verb agreement?

कौन-सा वाक्य कर्ता-क्रिया अन्विति (subject-verb agreement) का सही प्रयोग करता है?

(1) **The dogs run in the park every morning. ✔**

(2) The dog are running in the park every morning.

(3) The dogs runs in the park every morning.

(4) The dog run in the park every morning.

Q.151 Which of the following is a significant factor that shapes gendered roles in Indian society?

निम्नलिखित में से कौन-सा एक महत्वपूर्ण कारक है जो भारतीय समाज में लैंगिक भूमिकाओं को आकार देता है?

(1) Natural differences / प्राकृतिक भिन्नताएँ

(2) School uniforms / विद्यालय की वर्दी

(3) Media images / मीडिया छवियाँ

(4) **Family expectations and traditions / पारिवारिक अपेक्षाएँ और परंपराएँ ✔**

Q.152 In which of the following teaching methods does a student find out everything for himself through complete self-activity or self-learning?

निम्नलिखित में से किस शिक्षण विधि में विद्यार्थी पूर्ण स्व-क्रिया या स्व-अधिगम के माध्यम से सब कुछ स्वयं खोजता है?

(1) Deductive method / निगमन विधि

(2) Lecture method / व्याख्यान विधि

(3) Inductive method / आगमन विधि

(4) **Heuristic method / ह्यूरिस्टिक (अन्वेषण) विधि ✔**

Q.153 Which psychological attitude is most important for a good facilitator to create a supportive classroom environment?

सहयोगात्मक कक्षा वातावरण बनाने के लिए एक अच्छे सुगमकर्ता के लिए कौन-सी मनोवैज्ञानिक अभिवृत्ति सबसे महत्वपूर्ण है?

(1) Competitiveness / प्रतिस्पर्धात्मकता

(2) **Empathy / समानुभूति ✔**

(3) Strictness / कठोरता

(4) Patience / धैर्य

Q.154 A teacher pairs the sound of a bell with lunchtime in a classroom. Over time, students begin to feel hungry when the bell rings, even without seeing lunch. This is an example of which learning process, and what is the role of the bell?

एक शिक्षक कक्षा में घंटी की ध्वनि को दोपहर के भोजन के समय के साथ जोड़ता है। समय के साथ, घंटी बजने पर विद्यार्थियों को भोजन देखे बिना ही भूख लगने लगती है। यह किस अधिगम प्रक्रिया का उदाहरण है, और घंटी की क्या भूमिका है?

(1) Classical conditioning; the bell is the unconditioned stimulus / शास्त्रीय अनुबंधन; घंटी अननुबंधित उद्दीपक है

(2) Trial and error learning; the bell is a reinforcement / प्रयास और त्रुटि द्वारा अधिगम; घंटी एक पुनर्बलन है

(3) Trial and error learning; the bell is the unconditioned stimulus / प्रयास और त्रुटि द्वारा अधिगम; घंटी अननुबंधित उद्दीपक है

(4) **Classical conditioning; the bell is the conditioned stimulus / शास्त्रीय अनुबंधन; घंटी अनुबंधित उद्दीपक है ✔**

Q.155 During a planning session, a school founder proposes rotating leadership roles among staff and making decisions through group consensus. How does this administrative structure align with the alternatives in education described in the context?

एक योजना सत्र के दौरान, एक विद्यालय संस्थापक कर्मचारियों के बीच नेतृत्व भूमिकाओं को बारी-बारी से सौंपने और समूह सर्वसम्मति से निर्णय लेने का प्रस्ताव करता है। यह प्रशासनिक संरचना संदर्भ में वर्णित शिक्षा के विकल्पों के साथ किस प्रकार मेल खाती है?

(1) It emphasizes teacher-centric control over student choices / यह विद्यार्थियों की पसंद पर शिक्षक-केंद्रित नियंत्रण पर बल देती है

(2) **It fosters collective ownership and avoids rigid hierarchies / यह सामूहिक स्वामित्व को बढ़ावा देती है और कठोर पदानुक्रमों से बचती है ✔**

(3) It prioritizes administrative efficiency over collaboration / यह सहयोग की तुलना में प्रशासनिक दक्षता को प्राथमिकता देती है

(4) It ensures faster decision-making through top-down authority / यह ऊपर से नीचे के प्राधिकार के माध्यम से तेज़ निर्णय-निर्माण सुनिश्चित करती है

Q.156 Which aspect helps educators develop a vision for education?

कौन-सा पहलू शिक्षकों को शिक्षा के लिए एक दृष्टि विकसित करने में सहायता करता है?

(1) Knowledge / ज्ञान

(2) Skills / कौशल

(3) Appearance / रूप-रंग

(4) **Values / मूल्य ✔**

Q.157 Listening and reading vocabulary mainly contribute to the development of:

श्रवण और पठन शब्दावली मुख्य रूप से किसके विकास में योगदान करती है?

(1) Spoken vocabulary / मौखिक शब्दावली

(2) **Passive vocabulary / निष्क्रिय शब्दावली ✔**

(3) Active vocabulary / सक्रिय शब्दावली

(4) Written vocabulary / लिखित शब्दावली

Q.158 The linguistic attitude that strictly demands consistent spelling, adherence to predetermined rules, and precise usage is labeled as:

वह भाषायी अभिवृत्ति जो सुसंगत वर्तनी, पूर्व-निर्धारित नियमों के पालन और सटीक प्रयोग की कड़ाई से माँग करती है, कहलाती है:

(1) Contextual / संदर्भात्मक

(2) Prescriptive / निर्देशात्मक (प्रिस्क्रिप्टिव) ✔

(3) Functional / प्रकार्यात्मक

(4) Interpretive / व्याख्यात्मक

Q.159 Which example best illustrates how family socialization can shape gendered roles in Indian households?

कौन-सा उदाहरण सबसे अच्छी तरह दर्शाता है कि पारिवारिक समाजीकरण भारतीय परिवारों में लैंगिक भूमिकाओं को किस प्रकार आकार दे सकता है?

(1) Parents enrolling all children in mixed-gender sports and coding clubs / माता-पिता द्वारा सभी बच्चों का मिश्रित-लिंग खेल और कोडिंग क्लबों में नामांकन कराना

(2) A family discussing gender stereotypes and challenging them together / एक परिवार द्वारा लैंगिक रूढ़ियों पर चर्चा करना और मिलकर उन्हें चुनौती देना

(3) Assigning boys more outdoor chores while girls do caregiving tasks at home / लड़कों को घर के बाहर के अधिक काम सौंपना, जबकि लड़कियाँ घर पर देखभाल संबंधी कार्य करती हैं ✔

(4) Parents encouraging all children to rotate chores and make joint decisions / माता-पिता द्वारा सभी बच्चों को बारी-बारी से घरेलू काम करने और संयुक्त निर्णय लेने के लिए प्रोत्साहित करना

Q.160 What does school culture primarily influence?

विद्यालय संस्कृति मुख्य रूप से किसे प्रभावित करती है?

(1) Infrastructure / अवसंरचना

(2) Curriculum / पाठ्यचर्या

(3) Behaviour / व्यवहार ✔

(4) Attendance / उपस्थिति

Q.161 Which concept is central to environmental studies?

पर्यावरण अध्ययन के लिए कौन-सी अवधारणा केंद्रीय है?

(1) Geometry / ज्यामिति

(2) Sustainability / धारणीयता (संधारणीयता) ✔

(3) Botany / वनस्पति विज्ञान

(4) Meteorology / मौसम विज्ञान

Q.162 How does multimedia technology impact class efficiency in English teaching?

मल्टीमीडिया प्रौद्योगिकी अंग्रेज़ी शिक्षण में कक्षा की दक्षता को किस प्रकार प्रभावित करती है?

(1) It restricts the flow of information and makes class monotonous. / यह सूचना के प्रवाह को प्रतिबंधित करती है और कक्षा को नीरस बनाती है।

(2) It enriches teaching content and makes the best use of class time. / यह शिक्षण सामग्री को समृद्ध करती है और कक्षा के समय का सर्वोत्तम उपयोग करती है। ✔

(3) It focuses only on teacher instruction and reduces interactivity. / यह केवल शिक्षक के अनुदेशन पर ध्यान केंद्रित करती है और अंतःक्रियाशीलता को कम करती है।

(4) It reduces opportunities for student participation in learning. / यह अधिगम में विद्यार्थियों की भागीदारी के अवसरों को कम करती है।

Q.163 Which feature makes a textbook pedagogically effective?

कौन-सी विशेषता किसी पाठ्यपुस्तक को शिक्षाशास्त्रीय रूप से प्रभावी बनाती है?

(1) Dense factual content presented in continuous narrative form / निरंतर आख्यान रूप में प्रस्तुत सघन तथ्यात्मक सामग्री

(2) Exclusive focus on summative assessment questions / केवल योगात्मक आकलन प्रश्नों पर ध्यान

(3) **Inclusion of activities, questions, and multiple perspectives / गतिविधियों, प्रश्नों और बहुविध दृष्टिकोणों का समावेश ✔**

(4) Emphasis on authoritative explanations without learner engagement / शिक्षार्थी की संलग्नता के बिना प्रामाणिक व्याख्याओं पर बल

Q.164 Which material is classified as a teaching-learning material (TLM)?

किस सामग्री को शिक्षण-अधिगम सामग्री (TLM) के रूप में वर्गीकृत किया जाता है?

(1) Register / रजिस्टर

(2) Bell / घंटी

(3) Pointer / संकेतक (पॉइंटर)

(4) **Textbook / पाठ्यपुस्तक ✔**

Q.165 Which skill is most restricted by the Grammar Translation Method (GTM)?

व्याकरण अनुवाद विधि (GTM) द्वारा कौन-सा कौशल सबसे अधिक प्रतिबंधित होता है?

(1) Vocabulary development / शब्दावली विकास

(2) Grammar analysis / व्याकरण विश्लेषण

(3) **Speaking and listening / बोलना और सुनना ✔**

(4) Reading and writing / पढ़ना और लिखना

Q.166 During lesson planning, a teacher checks the textbook for accuracy of facts and appropriateness of illustrations. What does this activity represent?

पाठ योजना बनाते समय, एक शिक्षक तथ्यों की सटीकता और चित्रों की उपयुक्तता के लिए पाठ्यपुस्तक की जाँच करता है। यह गतिविधि किसका प्रतिनिधित्व करती है?

(1) Deliberate memorisation of subject facts / विषय के तथ्यों को सोच-समझकर याद करना

(2) Effective organisation of classroom activities / कक्षा गतिविधियों का प्रभावी संगठन

(3) **Systematic analysis of textbook content / पाठ्यपुस्तक की विषयवस्तु का व्यवस्थित विश्लेषण ✔**

(4) Continuous evaluation of student learning / विद्यार्थियों के अधिगम का सतत मूल्यांकन

Q.167 Which characteristic is central to the Grammar Translation Method of teaching English?

अंग्रेज़ी शिक्षण की व्याकरण अनुवाद विधि के लिए कौन-सी विशेषता केंद्रीय है?

(1) Integrating digital tools as the primary medium / डिजिटल उपकरणों को प्राथमिक माध्यम के रूप में एकीकृत करना

(2) **Emphasizing grammar–translation practice / व्याकरण–अनुवाद अभ्यास पर बल देना ✔**

(3) Focusing only on spoken fluency / केवल मौखिक प्रवाह पर ध्यान केंद्रित करना

(4) Encouraging experiential, task-based learning / अनुभवात्मक, कार्य-आधारित अधिगम को प्रोत्साहित करना

Q.168 A school leader wants to ensure equitable resource distribution among classrooms. What is the most effective administrative leadership practice in this scenario?

एक विद्यालय प्रमुख कक्षाओं के बीच संसाधनों का न्यायसंगत वितरण सुनिश्चित करना चाहता है। इस परिदृश्य में सबसे प्रभावी प्रशासनिक नेतृत्व प्रक्रिया कौन-सी है?

(1) Distributing supplies equally as per-teacher quotas / प्रति-शिक्षक कोटे के अनुसार सामग्री का समान वितरण करना

(2) Providing resources only to high-performing classes / केवल उच्च प्रदर्शन करने वाली कक्षाओं को संसाधन प्रदान करना

(3) Delegating all resource decisions to department heads / संसाधन संबंधी सभी निर्णय विभागाध्यक्षों को सौंपना

(4) Implementing a transparent resource allocation policy / एक पारदर्शी संसाधन आवंटन नीति लागू करना ✓

Q.169 A teacher organizes an activity where students compare types of housing materials (Science/Physics) used in local villages with the socio-economic status of the residents (Social Science). This instructional design primarily applies the approach of:

एक शिक्षक एक गतिविधि आयोजित करता है जिसमें विद्यार्थी स्थानीय गाँवों में प्रयुक्त आवास सामग्री के प्रकारों (विज्ञान/भौतिकी) की तुलना निवासियों की सामाजिक-आर्थिक स्थिति (सामाजिक विज्ञान) से करते हैं। यह अनुदेशात्मक अभिकल्पना मुख्य रूप से किस उपागम को लागू करती है?

(1) Disciplinary content segmentation / विषयगत सामग्री का विभाजन

(2) Process skills specialization / प्रक्रिया कौशलों का विशेषीकरण

(3) Integrated content analysis / एकीकृत विषयवस्तु विश्लेषण ✓

(4) Abstract concept simplification / अमूर्त अवधारणा का सरलीकरण

Q.170 A teacher following the GTM mandates that students memorize lengthy bilingual vocabulary lists and translate complex literary passages from their mother tongue (L1) to the target language (L2) in a rigid, literal manner. Which core objective of modern language pedagogy is fundamentally excluded by this GTM practice?

GTM का पालन करने वाला एक शिक्षक अनिवार्य करता है कि विद्यार्थी लंबी द्विभाषी शब्दावली सूचियाँ याद करें और जटिल साहित्यिक गद्यांशों का अपनी मातृभाषा (L1) से लक्ष्य भाषा (L2) में कठोर, शाब्दिक ढंग से अनुवाद करें। इस GTM प्रक्रिया द्वारा आधुनिक भाषा शिक्षाशास्त्र का कौन-सा मूल उद्देश्य मूलतः बाहर हो जाता है?

(1) Promoting spontaneous oral fluency. / स्वतःस्फूर्त मौखिक प्रवाह को बढ़ावा देना। ✓

(2) Utilizing receptive reading skills. / ग्रहणशील पठन कौशलों का उपयोग करना।

(3) Focusing on grammatical structure. / व्याकरणिक संरचना पर ध्यान केंद्रित करना।

(4) Stressing vocabulary memorization. / शब्दावली को याद करने पर बल देना।

Q.171 How does pedagogical leadership fundamentally differ from traditional instructional leadership in shaping a school's learning culture?

विद्यालय की अधिगम संस्कृति को आकार देने में शिक्षाशास्त्रीय नेतृत्व पारंपरिक अनुदेशात्मक नेतृत्व से मूलतः किस प्रकार भिन्न है?

(1) It prioritizes administrative compliance over teaching innovation / यह शिक्षण नवाचार की तुलना में प्रशासनिक अनुपालन को प्राथमिकता देता है

(2) It focuses mainly on improving standardized test results / यह मुख्य रूप से मानकीकृत परीक्षा परिणामों में सुधार पर ध्यान केंद्रित करता है

(3) It focuses on values, community involvement, and the purpose of learning / यह मूल्यों, सामुदायिक भागीदारी और अधिगम के उद्देश्य पर ध्यान केंद्रित करता है ✓

(4) It strictly follows prescribed teaching methods for classroom delivery / यह कक्षा शिक्षण के लिए निर्धारित शिक्षण विधियों का कड़ाई से पालन करता है

Q.172 Which aspect of Social Studies enables students to understand social issues by drawing upon concepts from history, geography, economics, and civics?

सामाजिक अध्ययन का कौन-सा पहलू विद्यार्थियों को इतिहास, भूगोल, अर्थशास्त्र और नागरिक शास्त्र की अवधारणाओं का उपयोग करके सामाजिक मुद्दों को समझने में सक्षम बनाता है?

(1) Its interdisciplinary nature / इसकी अंतर्विषयी प्रकृति ✔

(2) Its role in national integration / राष्ट्रीय एकीकरण में इसकी भूमिका

(3) Its focus on inquiry-based learning / जाँच-आधारित अधिगम पर इसका ध्यान

(4) Its emphasis on civic responsibility / नागरिक उत्तरदायित्व पर इसका बल

Q.173 The primary-level Environmental Studies (EVS) curriculum mainly aims to:

प्राथमिक स्तर की पर्यावरण अध्ययन (EVS) पाठ्यचर्या का मुख्य उद्देश्य है:

(1) Develop awareness of the child's immediate environment / बच्चे के निकटतम पर्यावरण के प्रति जागरूकता विकसित करना ✔

(2) Promote detailed study of environmental laws and policies / पर्यावरण कानूनों और नीतियों के विस्तृत अध्ययन को बढ़ावा देना

(3) Emphasise factual memorisation of ecological terminology / पारिस्थितिक शब्दावली को तथ्यात्मक रूप से याद करने पर बल देना

(4) Prepare learners for advanced environmental science courses / शिक्षार्थियों को उन्नत पर्यावरण विज्ञान पाठ्यक्रमों के लिए तैयार करना

Q.174 During a micro-teaching session, Ms. Rao begins her lesson by relating a new vocabulary word to a recent festival celebrated in the community, asking students how they felt during that event. Which micro-teaching skill is she primarily demonstrating in this scenario?

एक सूक्ष्म-शिक्षण सत्र के दौरान, सुश्री राव अपने पाठ की शुरुआत एक नए शब्द को समुदाय में हाल ही में मनाए गए एक त्योहार से जोड़कर करती हैं और विद्यार्थियों से पूछती हैं कि उस आयोजन के दौरान उन्होंने कैसा महसूस किया। इस परिदृश्य में वह मुख्य रूप से कौन-सा सूक्ष्म-शिक्षण कौशल प्रदर्शित कर रही हैं?

(1) Skill of Stimulus Variation / उद्दीपन परिवर्तन कौशल

(2) Skill of Explanation / व्याख्या कौशल

(3) Skill of Introducing a Lesson / पाठ प्रस्तावना कौशल ✔

(4) Skill of Reinforcement / पुनर्बलन कौशल

Q.175 Which of the following best illustrates the significance of integrating environmental studies with other subjects in the elementary curriculum?

निम्नलिखित में से कौन-सा प्रारंभिक पाठ्यचर्या में पर्यावरण अध्ययन को अन्य विषयों के साथ एकीकृत करने के महत्व को सबसे अच्छी तरह दर्शाता है?

(1) It helps students see real-world connections across disciplines / यह विद्यार्थियों को विभिन्न विषयों में वास्तविक दुनिया के संबंध देखने में सहायता करता है ✔

(2) Restricting EVS activities to indoor classroom exercises / EVS गतिविधियों को कक्षा के भीतर के अभ्यासों तक सीमित रखना

(3) Teaching EVS only as a separate subject / EVS को केवल एक अलग विषय के रूप में पढ़ाना

(4) Covering EVS concepts after finishing all other subjects / अन्य सभी विषय समाप्त करने के बाद EVS की अवधारणाओं को पढ़ाना

Q.176 When measuring school effectiveness, which combination of indicators would most accurately reflect both academic success and a positive school culture?

विद्यालय की प्रभावशीलता को मापते समय, संकेतकों का कौन-सा संयोजन शैक्षणिक सफलता और सकारात्मक विद्यालय संस्कृति, दोनों को सबसे सटीक रूप से दर्शाएगा?

(1) Number of extracurricular activities offered to all students / सभी विद्यार्थियों को दी जाने वाली पाठ्येतर गतिविधियों की संख्या

(2) Student achievement data plus stakeholder views on school climate / विद्यार्थी उपलब्धि आँकड़े तथा विद्यालय के वातावरण पर हितधारकों के विचार ✔

(3) Only standardized test scores for measuring school performance / विद्यालय के प्रदर्शन को मापने के लिए केवल मानकीकृत परीक्षा अंक

(4) Teacher workload stats plus budget allocation reports data / शिक्षकों के कार्यभार के आँकड़े तथा बजट आवंटन रिपोर्ट के आँकड़े

Q.177 Which strategy best evaluates higher-order thinking through open-ended questions?

मुक्त-उत्तरीय प्रश्नों के माध्यम से उच्च-स्तरीय चिंतन का मूल्यांकन करने के लिए कौन-सी रणनीति सबसे अच्छी है?

(1) Peer review method / सहपाठी समीक्षा विधि

(2) Closed-ended grading / बंद-उत्तरीय ग्रेडिंग

(3) Rubric-based assessment / रूब्रिक-आधारित आकलन ✔

(4) Automated scoring / स्वचालित अंकन

Q.178 A school district has implemented a policy that allocates extracurricular resources equally among schools, regardless of the socioeconomic status of their students.
Which approach to equality and justice does this policy most likely reflect?

एक स्कूल जिले ने एक नीति लागू की है जो विद्यार्थियों की सामाजिक-आर्थिक स्थिति की परवाह किए बिना विद्यालयों के बीच पाठ्येतर संसाधनों का समान आवंटन करती है।
यह नीति समानता और न्याय के किस दृष्टिकोण को सबसे अधिक दर्शाती है?

(1) Compensatory justice for marginalized students / हाशिए पर स्थित विद्यार्थियों के लिए प्रतिपूरक न्याय

(2) Equity-based redistribution for low-income schools / निम्न-आय वाले विद्यालयों के लिए समता-आधारित पुनर्वितरण

(3) Formal equality in resource allocation / संसाधन आवंटन में औपचारिक समानता ✔

(4) Procedural fairness in decision making / निर्णय-निर्माण में प्रक्रियात्मक निष्पक्षता

Q.179 How does justice in society differ from equality?

समाज में न्याय, समानता से किस प्रकार भिन्न है?

(1) Justice is for punishment, equality for rights / न्याय दंड के लिए है, समानता अधिकारों के लिए

(2) Justice is a legal term, equality is a social goal / न्याय एक विधिक शब्द है, समानता एक सामाजिक लक्ष्य है

(3) Justice is fairness; equality is sameness / न्याय निष्पक्षता है; समानता एकरूपता है ✔

(4) Justice ignores individual needs, equality does not / न्याय व्यक्तिगत आवश्यकताओं की उपेक्षा करता है, समानता नहीं करती

Q.180 Which of the following best summarizes the objectives of language teaching- learning in schools?

निम्नलिखित में से कौन-सा विद्यालयों में भाषा शिक्षण-अधिगम के उद्देश्यों का सबसे अच्छा सारांश प्रस्तुत करता है?

(1) Prioritize memorization of literary texts and rules of language and structure / साहित्यिक पाठों तथा भाषा और संरचना के नियमों को याद करने को प्राथमिकता देना

(2) Focus only on grammar, vocabulary, and reading comprehension / केवल व्याकरण, शब्दावली और पठन बोध पर ध्यान केंद्रित करना

(3) Train students exclusively for academic writing and exams / विद्यार्थियों को केवल शैक्षणिक लेखन और परीक्षाओं के लिए प्रशिक्षित करना

(4) Develop listening, reading, writing, speaking, creativity, and understanding / सुनने, पढ़ने, लिखने, बोलने, रचनात्मकता और समझ का विकास करना ✓

Q.181 During an English lesson, a teacher plays a recorded story for the students and then asks them to answer questions about the plot. This approach is most closely associated with which category of teaching aids?

एक अंग्रेज़ी पाठ के दौरान, एक शिक्षक विद्यार्थियों के लिए एक रिकॉर्ड की गई कहानी चलाता है और फिर उनसे कथानक के बारे में प्रश्नों के उत्तर देने के लिए कहता है। यह उपागम शिक्षण सहायक सामग्री की किस श्रेणी से सबसे अधिक संबंधित है?

(1) Digital aids / डिजिटल सहायक सामग्री

(2) Visual aids / दृश्य सहायक सामग्री

(3) Tactile/Kinesthetic aids / स्पर्शीय/गतिसंवेदी सहायक सामग्री

(4) Auditory aids / श्रव्य सहायक सामग्री ✓

Q.182 Which of the following activities is an example of recreational mathematics in the classroom?

निम्नलिखित में से कौन-सी गतिविधि कक्षा में मनोरंजक गणित का एक उदाहरण है?

(1) Solving structured word problems / संरचित शाब्दिक प्रश्नों को हल करना

(2) Playing number-based puzzles / संख्या-आधारित पहेलियाँ खेलना ✓

(3) Memorizing multiplication tables / गुणा तालिकाएँ (पहाड़े) याद करना

(4) Listening to teacher explanations / शिक्षक की व्याख्याएँ सुनना

Q.183 Which of the following activities is commonly organized by science and eco-clubs in schools?

विद्यालयों में विज्ञान और इको-क्लबों द्वारा सामान्यतः निम्नलिखित में से कौन-सी गतिविधि आयोजित की जाती है?

(1) Organizing inter-school sports competitions / अंतर-विद्यालय खेल प्रतियोगिताएँ आयोजित करना

(2) Conducting experiments and awareness programs / प्रयोग और जागरूकता कार्यक्रम आयोजित करना ✓

(3) Planning annual cultural festivals / वार्षिक सांस्कृतिक उत्सवों की योजना बनाना

(4) Holding language and literature debates / भाषा और साहित्य संबंधी वाद-विवाद आयोजित करना

Q.184 Formative assessment techniques primarily utilize what feedback mechanism distinguishing it from summative judgment?

रचनात्मक आकलन तकनीकें मुख्य रूप से किस प्रतिपुष्टि (फीडबैक) तंत्र का उपयोग करती हैं, जो इसे योगात्मक निर्णय से अलग करता है?

(1) Standardized comparison against population benchmarks / जनसंख्या मानदंडों के सापेक्ष मानकीकृत तुलना

(2) Descriptive elicitation guiding instructional adjustments / अनुदेशात्मक समायोजनों का मार्गदर्शन करने वाला वर्णनात्मक प्रकटीकरण ✓

(3) Numerical scoring ranking peer performance levels / साथियों के प्रदर्शन स्तरों को क्रमबद्ध करने वाला संख्यात्मक अंकन

(4) Final certification verifying endpoint mastery achieved / प्राप्त अंतिम निपुणता को सत्यापित करने वाला अंतिम प्रमाणन

Q.185 A teacher often assigns leadership roles to boys and supportive tasks to girls. This classroom practice :

एक शिक्षक प्रायः लड़कों को नेतृत्व भूमिकाएँ और लड़कियों को सहायक कार्य सौंपता है। यह कक्षा प्रक्रिया :

(1) Supports inclusive decision-making / समावेशी निर्णय-निर्माण का समर्थन करती है

(2) Reinforces gender stereotypes / लैंगिक रूढ़ियों को सुदृढ़ करती है ✔

(3) Promotes equality / समानता को बढ़ावा देती है

(4) Encourages democratic participation / लोकतांत्रिक भागीदारी को प्रोत्साहित करती है

Q.186 A school wants to ensure CwSN can participate fully in classroom activities. Which combination of actions best supports this goal?

एक विद्यालय यह सुनिश्चित करना चाहता है कि विशेष आवश्यकता वाले बच्चे (CwSN) कक्षा गतिविधियों में पूर्ण रूप से भाग ले सकें। कार्यों का कौन-सा संयोजन इस लक्ष्य का सबसे अच्छा समर्थन करता है?

(1) Adjusting lesson formats, providing accessible materials, and allowing accommodations / पाठ के प्रारूपों को समायोजित करना, सुलभ सामग्री प्रदान करना और आवश्यक सुविधाओं (समायोजनों) की अनुमति देना ✔

(2) Reducing the curriculum content, limiting technology use, and having no support staff / पाठ्यचर्या की विषयवस्तु कम करना, प्रौद्योगिकी का उपयोग सीमित करना और कोई सहायक कर्मचारी न रखना

(3) Ignoring special needs, using only written assessments, and keeping standard seating / विशेष आवश्यकताओं की उपेक्षा करना, केवल लिखित आकलन का उपयोग करना और मानक बैठने की व्यवस्था रखना

(4) Assigning more homework, using one teaching style, and removing group work / अधिक गृहकार्य देना, एक ही शिक्षण शैली का उपयोग करना और समूह कार्य हटा देना

Q.187 Which of the following is a disadvantage of a science kit?

निम्नलिखित में से कौन-सी विज्ञान किट की एक हानि है?

(1) It makes learning more effective for students / यह विद्यार्थियों के लिए अधिगम को अधिक प्रभावी बनाती है

(2) It may require frequent replacement of small components / इसके छोटे घटकों को बार-बार बदलने की आवश्यकता हो सकती है ✔

(3) It always offers hands-on learning opportunities for students / यह विद्यार्थियों को सदैव प्रत्यक्ष (हैंड्स-ऑन) अधिगम के अवसर प्रदान करती है

(4) It consistently improves the clarity of scientific explanations / यह वैज्ञानिक व्याख्याओं की स्पष्टता में निरंतर सुधार करती है

Q.188 Which of the following assessment techniques is most appropriate for evaluating higher-order cognitive skills?

उच्च-स्तरीय संज्ञानात्मक कौशलों के मूल्यांकन के लिए निम्नलिखित में से कौन-सी आकलन तकनीक सबसे उपयुक्त है?

(1) Observation / अवलोकन

(2) Checklists / जाँच सूचियाँ

(3) Oral questioning / मौखिक प्रश्न पूछना

(4) Essay questions / निबंधात्मक प्रश्न ✔

QuickSarkari.com | WhatsApp Channel | Telegram: t.me/quick_sarkari

Q.189 Which of the following best illustrates the social construction of femininity in schools?

निम्नलिखित में से कौन-सा विद्यालयों में स्त्रीत्व के सामाजिक निर्माण को सबसे अच्छी तरह दर्शाता है?

(1) Encouraging girls to participate more in arts than in sports / लड़कियों को खेलों की तुलना में कलाओं में अधिक भाग लेने के लिए प्रोत्साहित करना ✓

(2) Providing equal opportunities in all subjects / सभी विषयों में समान अवसर प्रदान करना

(3) Allowing students to choose any extracurricular activity / विद्यार्थियों को कोई भी पाठ्येतर गतिविधि चुनने की अनुमति देना

(4) Assigning science projects to all students regardless of gender / लिंग की परवाह किए बिना सभी विद्यार्थियों को विज्ञान परियोजनाएँ सौंपना

Q.190 In an Indian classroom with students from various linguistic backgrounds, which instructional strategy most effectively promotes inclusive participation and minimizes inequality of learning opportunities?

विभिन्न भाषायी पृष्ठभूमि वाले विद्यार्थियों की एक भारतीय कक्षा में, कौन-सी अनुदेशात्मक रणनीति समावेशी भागीदारी को सबसे प्रभावी ढंग से बढ़ावा देती है और अधिगम के अवसरों की असमानता को न्यूनतम करती है?

(1) Limiting activities to monolingual approaches / गतिविधियों को एकभाषी उपागमों तक सीमित रखना

(2) Focusing on individual academic performance / व्यक्तिगत शैक्षणिक प्रदर्शन पर ध्यान केंद्रित करना

(3) Assigning tasks by language proficiency / भाषा दक्षता के आधार पर कार्य सौंपना

(4) Using flexible grouping for collaborative projects / सहयोगात्मक परियोजनाओं के लिए लचीले समूहन का उपयोग करना ✓

Q.191 How are individual differences among students perceived in inclusive education?

समावेशी शिक्षा में विद्यार्थियों के बीच वैयक्तिक भिन्नताओं को किस रूप में देखा जाता है?

(1) As problems needing strict correction and control / कठोर सुधार और नियंत्रण की आवश्यकता वाली समस्याओं के रूप में

(2) As obstacles preventing efficient classroom management / कुशल कक्षा प्रबंधन में बाधा डालने वाली रुकावटों के रूप में

(3) As a source of richness and diversity for learning / अधिगम के लिए समृद्धि और विविधता के स्रोत के रूप में ✓

(4) As reasons to separate students into groups / विद्यार्थियों को समूहों में अलग करने के कारणों के रूप में

Q.192 When science is understood as knowledge that must be verifiable, testable, and reproducible, it emphasises its:

जब विज्ञान को ऐसे ज्ञान के रूप में समझा जाता है जो सत्यापन योग्य, परीक्षण योग्य और पुनरुत्पादन योग्य होना चाहिए, तो यह उसके किस पक्ष पर बल देता है?

(1) Emphasis on rote memorisation / रटकर याद करने पर बल

(2) Empirical foundation / आनुभविक आधार ✓

(3) Reliance on authoritative claims / प्रामाणिक दावों पर निर्भरता

(4) Subjective orientation / व्यक्तिनिष्ठ अभिविन्यास

Q.193 A school committee is developing guidelines to foster gender inclusion through curriculum and classroom processes. Which policy recommendation would be most effective in challenging the subtle reproduction of gender bias in daily teaching practices?

एक विद्यालय समिति पाठ्यचर्या और कक्षा प्रक्रियाओं के माध्यम से लैंगिक समावेशन को बढ़ावा देने के लिए दिशानिर्देश विकसित कर रही है। दैनिक शिक्षण प्रक्रियाओं में लैंगिक पूर्वाग्रह के सूक्ष्म पुनरुत्पादन को चुनौती देने में कौन-सी नीतिगत अनुशंसा सबसे प्रभावी होगी?

(1) Mandating the use of gender-neutral uniforms for all without addressing classroom interactions / कक्षा की अंतःक्रियाओं पर ध्यान दिए बिना सभी के लिए लिंग-तटस्थ वर्दी का उपयोग अनिवार्य करना

(2) Integrating regular teacher training session on recognizing and addressing implicit gender bias / अंतर्निहित लैंगिक पूर्वाग्रह को पहचानने और उसका समाधान करने पर नियमित शिक्षक प्रशिक्षण सत्रों को एकीकृत करना ✔

(3) Increasing the number of female authors in the reading list of every subject in the classroom / कक्षा में प्रत्येक विषय की पठन सूची में महिला लेखकों की संख्या बढ़ाना

(4) Organizing extracurricular activities strictly along gender lines for administrative convenience / प्रशासनिक सुविधा के लिए पाठ्येतर गतिविधियों को कड़ाई से लिंग के आधार पर आयोजित करना

Q.194 A teacher integrates pattern recognition and symbolic representation in lessons on sequences. What cognitive benefit does this approach offer according to the educational importance of mathematics?

एक शिक्षक अनुक्रमों पर पाठों में प्रतिरूप पहचान और प्रतीकात्मक निरूपण को एकीकृत करता है। गणित के शैक्षिक महत्व के अनुसार यह उपागम कौन-सा संज्ञानात्मक लाभ प्रदान करता है?

(1) Limitation of creativity in problem-solving / समस्या-समाधान में रचनात्मकता का सीमित होना

(2) Cultivation of mental discipline and lateral thinking / मानसिक अनुशासन और पार्श्व चिंतन का विकास ✔

(3) Reduction of cognitive load through routine / दिनचर्या के माध्यम से संज्ञानात्मक भार में कमी

(4) Improvement of recall speed only / केवल प्रत्यास्मरण की गति में सुधार

Q.195 What is the primary reason for using teaching aids in language classes?

भाषा कक्षाओं में शिक्षण सहायक सामग्री का उपयोग करने का प्राथमिक कारण क्या है?

(1) To replace traditional teaching methods / पारंपरिक शिक्षण विधियों को प्रतिस्थापित करना

(2) To focus solely on vocabulary / केवल शब्दावली पर ध्यान केंद्रित करना

(3) To eliminate the need for textbooks / पाठ्यपुस्तकों की आवश्यकता को समाप्त करना

(4) To enhance learners' learning process / शिक्षार्थियों की अधिगम प्रक्रिया को बेहतर बनाना ✔

Q.196 Which of the following statements best describes the nature of science?

निम्नलिखित में से कौन-सा कथन विज्ञान की प्रकृति का सबसे अच्छा वर्णन करता है?

(1) Science is only a collection of facts and theories that students memorize. / विज्ञान केवल तथ्यों और सिद्धांतों का संग्रह है जिन्हें विद्यार्थी याद करते हैं।

(2) Science only deals with abstract concepts and not real-world phenomena. / विज्ञान केवल अमूर्त अवधारणाओं से संबंधित है, वास्तविक दुनिया की परिघटनाओं से नहीं।

(3) Science is purely theoretical and does not require practical activities or observation. / विज्ञान विशुद्ध रूप से सैद्धांतिक है और इसमें व्यावहारिक गतिविधियों या अवलोकन की आवश्यकता नहीं होती।

(4) Science is a systematic process of learning through observation, experimentation, and reasoning. / विज्ञान अवलोकन, प्रयोग और तर्क के माध्यम से सीखने की एक व्यवस्थित प्रक्रिया है। ✔

Q.197 Which classroom scenario reflects the social construction of femininity?

कौन-सा कक्षा परिदृश्य स्त्रीत्व के सामाजिक निर्माण को दर्शाता है?

(1) Boys given leadership / लड़कों को नेतृत्व दिया जाना

(2) Mixed-gender sports / मिश्रित-लिंग खेल

(3) **Girls praised for quietness / लड़कियों की शांत स्वभाव के लिए प्रशंसा ✔**

(4) Encouraged open debate / खुली बहस को प्रोत्साहन

Q.198 How does mathematics validate truth?

गणित सत्य को किस प्रकार प्रमाणित करता है?

(1) By only using experiments / केवल प्रयोगों का उपयोग करके

(2) **By relying on logical reasoning / तार्किक तर्क पर निर्भर रहकर ✔**

(3) By focusing only on daily life examples / केवल दैनिक जीवन के उदाहरणों पर ध्यान केंद्रित करके

(4) By ignoring systematic study / व्यवस्थित अध्ययन की उपेक्षा करके

Q.199 What intervention does the educational reform advocate for learning failures caused by lack of diverse materials (e.g., Braille) and rigid teaching styles?

विविध सामग्री (जैसे, ब्रेल) की कमी और कठोर शिक्षण शैलियों के कारण होने वाली अधिगम विफलताओं के लिए शैक्षिक सुधार किस हस्तक्षेप की वकालत करता है?

(1) Segregated instruction / पृथक्कृत अनुदेशन

(2) A medicalized solution / एक चिकित्सकीय समाधान

(3) Individualized curriculum / वैयक्तिकृत पाठ्यचर्या

(4) **Social Model intervention / सामाजिक मॉडल हस्तक्षेप ✔**

Q.200 If a group creates their own math riddles and shares them, what learning approach are they using?

यदि एक समूह अपनी स्वयं की गणितीय पहेलियाँ बनाता है और उन्हें साझा करता है, तो वे किस अधिगम उपागम का उपयोग कर रहे हैं?

(1) **They are applying creativity through play. / वे खेल के माध्यम से रचनात्मकता का प्रयोग कर रहे हैं। ✔**

(2) They are copying from a textbook. / वे पाठ्यपुस्तक से नकल कर रहे हैं।

(3) They are practicing silent memorization. / वे मौन रूप से याद करने का अभ्यास कर रहे हैं।

(4) They are ignoring group activities.
" / वे समूह गतिविधियों की उपेक्षा कर रहे हैं।
"

Answer Key / उत्तर कुंजी

1 2	**2** 1	**3** 3	**4** 3	**5** 3	**6** 4	**7** 4	**8** 1	**9** 4	**10** 2	**11** 1	**12** 1	**13** 4	**14** 1	**15** 4
16 4	**17** 2	**18** 3	**19** 3	**20** 2	**21** 2	**22** 2	**23** 1	**24** 1	**25** 1	**26** 4	**27** 4	**28** 3	**29** 3	**30** 3
31 1	**32** 4	**33** 4	**34** 2	**35** 1	**36** 2	**37** 3	**38** 1	**39** 2	**40** 4	**41** 1	**42** 2	**43** 2	**44** 4	**45** 2
46 2	**47** 3	**48** 2	**49** 2	**50** 1	**51** 3	**52** 4	**53** 3	**54** 3	**55** 4	**56** 1	**57** 4	**58** 1	**59** 3	**60** 1
61 1	**62** 3	**63** 1	**64** 2	**65** 3	**66** 2	**67** 1	**68** 4	**69** 3	**70** 3	**71** 2	**72** 4	**73** 1	**74** 3	**75** 1
76 1	**77** 3	**78** 1	**79** 1	**80** 4	**81** 4	**82** 2	**83** 1	**84** 4	**85** 1	**86** 4	**87** 4	**88** 1	**89** 1	**90** 3

91 3	**92** 1	**93** 4	**94** 1	**95** 4	**96** 1	**97** 4	**98** 3	**99** 1	**100** 2	**101** 2	**102** 2	**103** 3	**104** 1	**105** 4
106 2	**107** 3	**108** 1	**109** 3	**110** 3	**111** 1	**112** 3	**113** 4	**114** 1	**115** 2	**116** 3	**117** 3	**118** 1	**119** 4	**120** 4
121 2	**122** 4	**123** 1	**124** 1	**125** 1	**126** 2	**127** 3	**128** 1	**129** 2	**130** 3	**131** 3	**132** 4	**133** 4	**134** 3	**135** 4
136 2	**137** 4	**138** 4	**139** 2	**140** 3	**141** 1	**142** 1	**143** 4	**144** 3	**145** 4	**146** 3	**147** 3	**148** 4	**149** 1	**150** 1
151 4	**152** 4	**153** 2	**154** 4	**155** 2	**156** 4	**157** 2	**158** 2	**159** 3	**160** 3	**161** 2	**162** 2	**163** 3	**164** 4	**165** 3
166 3	**167** 2	**168** 4	**169** 3	**170** 1	**171** 3	**172** 1	**173** 1	**174** 3	**175** 1	**176** 2	**177** 3	**178** 3	**179** 3	**180** 4
181 4	**182** 2	**183** 2	**184** 2	**185** 2	**186** 1	**187** 2	**188** 4	**189** 1	**190** 4	**191** 3	**192** 2	**193** 2	**194** 2	**195** 4
196 4	**197** 3	**198** 2	**199** 4	**200** 1										

Quick Sarkari

GOVT. OF NCT OF DELHI
Delhi Subordinate Services Selection Board
FC-18, Institutional Area, Karkardooma, Delhi – 110092.
www.dsssb.delhigovt.nic.in

Participant ID	[redacted]
Participant Name	[redacted]
Test Center Name	Aadarsh Pariksha Kendra CENTER C - Gate No 2 - Noida Sector 64
Test Date	17/02/2026
Test Time	5:00 PM - 7:00 PM
Subject	Assistant Teacher Primary

Section : General Intelligence and Reasoning Ability

Q.1 What will come in the place of '?' in the following equation, if '+' and '÷' are interchanged and '-' and '×' are interchanged?

46 + 2 × 4 - 6 ÷ 20 = ?3954

Ans
✗ 1. 23
✓ 2. 19
✗ 3. 17
✗ 4. 27

Question ID : 441009554419
Option 1 ID : 4410092172992
Option 2 ID : 4410092172991
Option 3 ID : 4410092172990
Option 4 ID : 4410092172993

QuickSarkari.com | WhatsApp Channel | Telegram: t.me/quick_sarkari

Q.2 S, U, B, M, E, R and G are sitting around a circular table facing the centre of the table. B sits to the immediate left of M. U sits to the immediate left of E. E sits second to the left of G. R sits third to the left of M. Who sits fourth to the right of S?

Ans
✔ 1. G
✘ 2. B
✘ 3. M
✘ 4. E

Question ID : 4410091618807
Option 1 ID : 4410096394103
Option 2 ID : 4410096394100
Option 3 ID : 4410096394101
Option 4 ID : 4410096394102

Q.3 Based on the English alphabetical order, three of the following four letter-cluster pairs are alike in a certain way and thus form a group. Which is the one that DOES NOT belong to that group?
(Note: The odd one out is not based on the number of consonants/vowels or their position in the letter-cluster.)

Ans
✘ 1. TC - ZH
✘ 2. UP - AU
✔ 3. YR - EV
✘ 4. AN - GS

Question ID : 441009782193
Option 1 ID : 4410093082778
Option 2 ID : 4410093082776
Option 3 ID : 4410093082777
Option 4 ID : 4410093082775

Q.4 Based on the English alphabetical order, three of the following four letter-cluster pairs are alike in a certain way and thus form a group. Which is the one that does not belong to that group?
(Note: The odd one out is not based on the number of consonants/vowels or their position in the letter cluster.)4095

Ans
✘ 1. PQ - RU
✘ 2. IJ - KN
✔ 3. VW - XZ
✘ 4. DE - FI

Question ID : 441009790209
Option 1 ID : 4410093114835
Option 2 ID : 4410093114836
Option 3 ID : 4410093114837
Option 4 ID : 4410093114838

QuickSarkari.com | WhatsApp Channel | Telegram: t.me/quick_sarkari

Q.5 The position(s) of how many letters will remain unchanged if each letter in the word FRIEND is arranged in the English alphabetical order?

Ans
1. None
2. Two
3. One
4. Three

Question ID : 4410091655136
Option 1 ID : 4410096535509
Option 2 ID : 4410096535511
Option 3 ID : 4410096535510
Option 4 ID : 4410096535512

Q.6 In a certain code language, 'LEAP' is coded as '9875' and 'LEAD' is coded as '3897'. What is the code for 'D' in the given code language?

Ans
1. 9
2. 8
3. 5
4. 3

Question ID : 4410091518954
Option 1 ID : 4410095999072
Option 2 ID : 4410095999073
Option 3 ID : 4410095999071
Option 4 ID : 4410095999070

Q.7 The position(s) of how many letters will remain unchanged if each letter in the word PRAYING is arranged in the English alphabetical order?9816

Ans
1. Three
2. One
3. Two
4. Zero

Question ID : 441009763971
Option 1 ID : 4410093009880
Option 2 ID : 4410093009878
Option 3 ID : 4410093009879
Option 4 ID : 4410093009877

QuickSarkari.com | WhatsApp Channel | Telegram: t.me/quick_sarkari

Q.8 Refer to the given letter series and answer the question that follows. Counting to be done from left to right only.
(Left) B K C A L Q R V G T N J E N E J W Y C G R L A M I U (Right)
How many such consonants are there, each of which is immediately preceded by a consonant and also immediately followed by a vowel?

Ans
✔ 1. Three
✘ 2. One
✘ 3. None
✘ 4. Two

Question ID : 441009792657
Option 1 ID : 4410093124630
Option 2 ID : 4410093124628
Option 3 ID : 4410093124627
Option 4 ID : 4410093124629

QuickSarkari

Q.9 Select the option in which the given figure is embedded (rotation is NOT allowed).

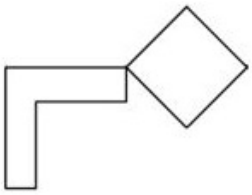

Ans

✗ 1.

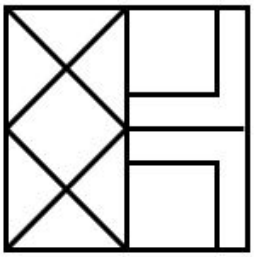

✗ 2.



✗ 3.

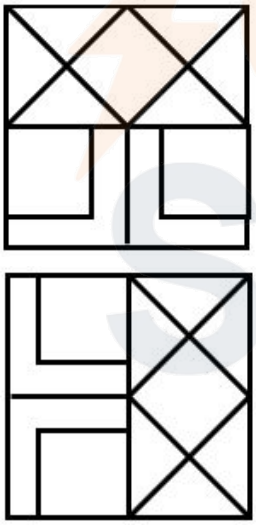

✓ 4.

Question ID : 441009906456
Option 1 ID : 4410093579634
Option 2 ID : 4410093579633
Option 3 ID : 4410093579632
Option 4 ID : 4410093579635

QuickSarkari.com | WhatsApp Channel | Telegram: t.me/quick_sarkari

Q.10 1003 is related to 274 following a certain logic. Following the same logic, 987 is related to 258. To which of the following is 1105 related to, following the same logic?
(NOTE : Operations should be performed on the whole numbers, without breaking down the numbers into its constituent digits.
E.g. 13 – Operations on 13 such as adding /subtracting /multiplying etc. to 13 can be performed. Breaking down 13 into 1 and 3 and then performing mathematical operations on 1 and 3 is not allowed.)2005

Ans
✗ 1. 307
✓ 2. 376
✗ 3. 367
✗ 4. 365

Question ID : 441009552470
Option 1 ID : 4410092165194
Option 2 ID : 4410092165197
Option 3 ID : 4410092165195
Option 4 ID : 4410092165196

Q.11 What should come in place of the question mark (?) in the given series?
14, 23, 32, 41, 50, ?

Ans
✓ 1. 59
✗ 2. 57
✗ 3. 61
✗ 4. 63

Question ID : 441009216190
Option 1 ID : 441009848800
Option 2 ID : 441009848799
Option 3 ID : 441009848801
Option 4 ID : 441009848802

Q.12 What will come in place of the question mark (?) in the following equation if '+' and '–' are interchanged and '×' and '÷' are interchanged?

424 ÷ 2 + 966 × 3 – 23 = ?

Ans
✓ 1. 549
✗ 2. 545
✗ 3. 645
✗ 4. 649

Question ID : 441009348646
Option 1 ID : 4410091360903
Option 2 ID : 4410091360902
Option 3 ID : 4410091360904
Option 4 ID : 4410091360905

QuickSarkari.com | WhatsApp Channel | Telegram: t.me/quick_sarkari

Q.13 Seven boxes, F, I, L, T, E, R and S, are kept one over the other but not necessarily in the same order. Only R is kept above E. Only two boxes are kept between E and T. Only I is kept below L. F is not kept immediately above T. How many boxes are kept between S and I?

Ans
- ✗ 1. Three
- ✗ 2. Four
- ✗ 3. One
- ✓ 4. Two

Question ID : 4410091518830
Option 1 ID : 4410095998600
Option 2 ID : 4410095998601
Option 3 ID : 4410095998598
Option 4 ID : 4410095998599

Q.14 L is the mother of E. E is the sister of M. O is the father of N. N is the husband of M. How is O related to L?

Ans
- ✓ 1. Daughter's husband's father
- ✗ 2. Daughter's husband
- ✗ 3. Daughter's husband's brother
- ✗ 4. Daughter's father

Question ID : 4410091614520
Option 1 ID : 4410096376893
Option 2 ID : 4410096376895
Option 3 ID : 4410096376894
Option 4 ID : 4410096376896

Q.15 Each of H, U, S, B, A, N and D has an exam on a different day of a week starting from Monday and ending on Sunday of the same week. Only three people have exams between B and H. Only three people have exams between A and S. D has an exam on some day before U and on some day after N. Only S has an exam after H. How many people have exam(s) after A?

Ans
- ✗ 1. One
- ✗ 2. Two
- ✗ 3. Three
- ✓ 4. Four

Question ID : 4410091518870
Option 1 ID : 4410095998754
Option 2 ID : 4410095998755
Option 3 ID : 4410095998756
Option 4 ID : 4410095998757

Q.16 Each of A, B, C, D, I, J and K has an exam on a different day of a week starting from Monday and ending on Sunday of the same week. Only three people have exams between C and I. Only three people have exams between J and D. B has exam on some day before K and on some day after A. Only D has exam after I. How many people have exams after J?

Ans
✗ 1. Three
✗ 2. Two
✗ 3. One
✓ 4. Four

Question ID : 4410091614368
Option 1 ID : 4410096376291
Option 2 ID : 4410096376290
Option 3 ID : 4410096376289
Option 4 ID : 4410096376292

Q.17 Refer to the following letter series and answer the question that follows. Counting to be done from left to right only.

(Left) E D U J Y H B V G T I O J U E D S A I B C A D E Y I O L B S M C (Right)

How many such vowel are there each of which is immediately preceded by a consonant and also immediately followed by a consonant?1404

Ans
✗ 1. One
✓ 2. Three
✗ 3. None
✗ 4. Two

Question ID : 441009787530
Option 1 ID : 4410093104120
Option 2 ID : 4410093104122
Option 3 ID : 4410093104119
Option 4 ID : 4410093104121

QuickSarkari.com | WhatsApp Channel | Telegram: t.me/quick_sarkari

Q.18 If the water source is placed along X-Y, as shown in the figure, which of the given options will be the water reflection of the given figure?

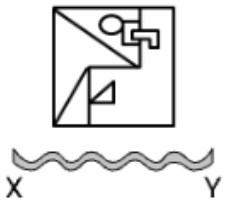

Ans

✗ 1. 

✗ 2. 

✓ 3. 

✗ 4. 

Question ID : 4410091614512
Option 1 ID : 4410096376868
Option 2 ID : 4410096376865
Option 3 ID : 4410096376866
Option 4 ID : 4410096376867

Q.19 What should come in place of ? in the given series based on the English alphabetical order?

SWUN XBZS CGEX HLJC ?

Ans

✗ 1. MQSW

✗ 2. MHYU

✓ 3. MQOH

✗ 4. MOHQ

Question ID : 4410091614442
Option 1 ID : 4410096376588
Option 2 ID : 4410096376587
Option 3 ID : 4410096376585
Option 4 ID : 4410096376586

QuickSarkari.com | WhatsApp Channel | Telegram: t.me/quick_sarkari

Q.20 In the following triads, each group of letters is related to the subsequent one following a certain logic. Select from the given options, the one which follows the same logic.
AMID - MIAD - DIMA
EAST - ASET - TSAE13119

Ans
1. FROM - ROFM - ROMF
2. WEAR - EAWR - RAEW
3. VAST - AVST - TASV
4. OPEN - OEPN - NEPO

Question ID : 441009767268
Option 1 ID : 4410093023068
Option 2 ID : 4410093023065
Option 3 ID : 4410093023067
Option 4 ID : 4410093023066

Section : General Awareness

Q.1 In which of the following years did NABARD initiate the pilot project for linking 500 groups in India?

Ans
1. 1995
2. 1992
3. 1990
4. 2000

Question ID : 441009628149
Option 1 ID : 4410092466750
Option 2 ID : 4410092466749
Option 3 ID : 4410092466748
Option 4 ID : 4410092466751

Q.2 What was the title of the National Conference organised on Human Rights Day 2025?

Ans
1. Dignity, Freedom and Justice for All
2. Ensuring Everyday Essentials: Public Services and Dignity for All
3. Human Rights 75: Public Services and Dignity for All
4. Equality and Inclusion

Question ID : 4410091564734
Option 1 ID : 4410096180507
Option 2 ID : 4410096180510
Option 3 ID : 4410096180508
Option 4 ID : 4410096180509

QuickSarkari.com | WhatsApp Channel | Telegram: t.me/quick_sarkari

Q.3 Match List I with List II

List I (Industry) List II (Location)

A. Visveswaraya Iron and Steel Plant I. Hirakud
B. Indian Aluminium Company Ltd. II. Sindri
C. Fertiliser Corporation of India Ltd. III. Pimpri
D. Hindustan Antibiotics Ltd. IV. Bhadravati

Ans
✔ 1. A - IV, B - I, C - II, D - III
✘ 2. A - II, B - IV, C - I, D - III
✘ 3. A - IV, B - II, C - I, D - III
✘ 4. A - I, B - II, C - III, D - IV

Question ID : 441009638145
Option 1 ID : 4410092506726
Option 2 ID : 4410092506723
Option 3 ID : 4410092506724
Option 4 ID : 4410092506725

Q.4 The concept of rural development includes the provision of basic services such as sanitation, water and electricity. What is the main objective of the Swachh Bharat Mission (Gramin)?

Ans
✔ 1. Open defecation free villages
✘ 2. Providing irrigation
✘ 3. Rural electrification
✘ 4. Providing gas connections

Question ID : 441009883736
Option 1 ID : 4410093488912
Option 2 ID : 4410093488913
Option 3 ID : 4410093488911
Option 4 ID : 4410093488910

Q.5 Which of the following buildings in Fatehpur Sikri is a fine example of ancient Indian architecture?

Ans
✔ 1. Jodha Bai Palace
✘ 2. Dash Mahal
✘ 3. Hawa Mahal
✘ 4. Raja Mahal

Question ID : 441009605613
Option 1 ID : 4410092377571
Option 2 ID : 4410092377572
Option 3 ID : 4410092377569
Option 4 ID : 4410092377570

QuickSarkari.com | WhatsApp Channel | Telegram: t.me/quick_sarkari

Q.6 The Kailasha monument at Ellora (near Aurangabad, Maharastra), viewed as a grand specimen of Rashtrakuta artistry, was erected under the patronage of which of the following kings?

Ans
✗ 1. Indra Varma
✗ 2. Vikramaditya
✗ 3. Krishna II
✓ 4. Krishna I

Question ID : 4410091551327
Option 1 ID : 4410096127633
Option 2 ID : 4410096127634
Option 3 ID : 4410096127632
Option 4 ID : 4410096127631

Q.7 Which Indian shooter secured her second individual gold medal in the women's 25 m standard pistol event at the ISSF Junior World Championship in 2024?

Ans
✗ 1. Apurvi Chandela
✗ 2. Manu Bhaker
✗ 3. Heena Sidhu
✓ 4. Divanshi

Question ID : 441009257818
Option 1 ID : 4410091005111
Option 2 ID : 4410091005109
Option 3 ID : 4410091005108
Option 4 ID : 4410091005110

Q.8 Which of the following is NOT a colligative property?

Ans
✗ 1. Freezing point depression
✗ 2. Relative lowering of vapour pressure
✓ 3. Elevation of freezing point
✗ 4. Boiling point elevation

Question ID : 441009616201
Option 1 ID : 4410092418974
Option 2 ID : 4410092418975
Option 3 ID : 4410092418976
Option 4 ID : 4410092418973

QuickSarkari.com | WhatsApp Channel | Telegram: t.me/quick_sarkari

Q.9 A population pyramid is used to show:

Ans
✗ 1. Distribution of agricultural land
✗ 2. Urban-rural migration patterns
✓ 3. Age and sex structure of the population
✗ 4. Population density of countries

Question ID : 441009637265
Option 1 ID : 4410092503205
Option 2 ID : 4410092503206
Option 3 ID : 4410092503204
Option 4 ID : 4410092503203

Q.10 Who among the following was the founder of Chalukya's dynasty?

Ans
✗ 1. Kirtivarman I
✗ 2. Rajendra II
✓ 3. Pulakeshin I
✗ 4. Vikramaditya I

Question ID : 44100921922
Option 1 ID : 44100987411
Option 2 ID : 44100987414
Option 3 ID : 44100987412
Option 4 ID : 44100987413

Q.11 Which of the following statements is correct about the relationship of the State Council of Ministers with the Governor?

Ans
✓ 1. They advise the Governor on governmental affairs.
✗ 2. They assist the Governor in drafting state laws.
✗ 3. They supervise the Governor's actions.
✗ 4. They hold office at the pleasure of the Governor.

Question ID : 441009635614
Option 1 ID : 4410092496605
Option 2 ID : 4410092496604
Option 3 ID : 4410092496606
Option 4 ID : 4410092496603

QuickSarkari.com | WhatsApp Channel | Telegram: t.me/quick_sarkari

Q.12 Electric and magnetic fields are regarded as-------

Ans
✗ 1. Scalar quantities because they have only magnitude
✗ 2. Non-physical entities without measurable effects
✗ 3. Independent phenomena with no relation
✓ 4. Vector quantities because they have both magnitude and direction

Question ID : 4410095092 58
Option 1 ID : 4410091992190
Option 2 ID : 4410091992193
Option 3 ID : 4410091992191
Option 4 ID : 4410091992192

Q.13 The Union Budget 2025-2026 of India was presented by:

Ans
✗ 1. Piyush Goyal
✗ 2. Rajnath Singh
✗ 3. Amit Shah
✓ 4. Nirmala Sitharaman

Question ID : 4410091564737
Option 1 ID : 4410096180520
Option 2 ID : 4410096180522
Option 3 ID : 4410096180521
Option 4 ID : 4410096180519

Q.14 Which peace agreement, signed on 26 October 2025, aimed to settle the border dispute between two Southeast Asian nations?

Ans
✗ 1. Schengen Peace Agreement
✓ 2. Kuala Lumpur Peace Accord
✗ 3. Kyoto Peace Protocol
✗ 4. Minsk Peace Protocol

Question ID : 4410091556403
Option 1 ID : 4410096148184
Option 2 ID : 4410096148182
Option 3 ID : 4410096148183
Option 4 ID : 4410096148185

QuickSarkari.com | WhatsApp Channel | Telegram: t.me/quick_sarkari

Q.15 Which Article of the Indian Constitution says that , there shall be a Minister in charge of tribal welfare in the States of Chhattisgarh, Jharkhand, Madhya Pradesh and Orissa?

Ans
- ✔ 1. Article 164
- ✘ 2. Article 166
- ✘ 3. Article 168
- ✘ 4. Article 170

Question ID : 4410095022255
Option 1 ID : 4410091964190
Option 2 ID : 4410091964191
Option 3 ID : 4410091964192
Option 4 ID : 4410091964193

Q.16 Dadabhai Naoroji developed an economic explanation that became a key Indian argument against British domination; this idea is known as which of the following?

Ans
- ✘ 1. Wealth-Export hypothesis
- ✔ 2. Drain-of-Wealth theory
- ✘ 3. Imperial Drain concept
- ✘ 4. Economic Drain thesis

Question ID : 4410091551261
Option 1 ID : 4410096127341
Option 2 ID : 4410096127339
Option 3 ID : 4410096127342
Option 4 ID : 4410096127340

Q.17 Which of the following sculptures is a famous example of Harappan bronze art?

Ans
- ✘ 1. Mother Goddess
- ✘ 2. Bearded Priest
- ✔ 3. Dancing Girl
- ✘ 4. Bull Seal

Question ID : 4410095861397
Option 1 ID : 4410093398634
Option 2 ID : 4410093398637
Option 3 ID : 4410093398635
Option 4 ID : 4410093398636

QuickSarkari.com | WhatsApp Channel | Telegram: t.me/quick_sarkari

Q.18 Which of the following indices does the Government of India employ to assess the employment situation in the country?

Ans
✔ 1. Worker Population Ratio (WPR)
✘ 2. Human Development Index (HDI)
✘ 3. Gini Coefficient
✘ 4. Consumer Price Index (CPI)

Question ID : 441009637391
Option 1 ID : 4410092503709
Option 2 ID : 4410092503708
Option 3 ID : 4410092503710
Option 4 ID : 4410092503707

Q.19 Which of the following is the main objective of the PM SVANidhi scheme?

Ans
✘ 1. To provide support to Old Age Persons
✔ 2. To provide financial support to street vendors for their business growth
✘ 3. To provide accommodation support to shelterless people
✘ 4. To provide free education to street vendors' children

Question ID : 441009501516
Option 1 ID : 4410091961236
Option 2 ID : 4410091961235
Option 3 ID : 4410091961237
Option 4 ID : 4410091961234

Q.20 The Khelo India Para Games 2025 took place in _____.

Ans
✘ 1. Bengaluru
✘ 2. Jaipur
✘ 3. Lucknow
✔ 4. New Delhi

Question ID : 441009285946
Option 1 ID : 4410091110878
Option 2 ID : 4410091110880
Option 3 ID : 4410091110881
Option 4 ID : 4410091110879

Section : Arithmetical and Numerical Ability

QuickSarkari.com | WhatsApp Channel | Telegram: t.me/quick_sarkari

Q.1 The average weight of a family of five members whose weights are 40 kg, 49 kg, 57 kg, 77 kg and 36 kg is:

Ans
✔ 1. 51.8 kg
✘ 2. 53.8 kg
✘ 3. 52.8 kg
✘ 4. 50.8 kg

Question ID : 441009582033
Option 1 ID : 4410092283258
Option 2 ID : 4410092283261
Option 3 ID : 4410092283259
Option 4 ID : 4410092283260

Q.2 The selling price of 25 books is equal to the cost price of 27 books. Find the loss or gain percentage.

Ans
✘ 1. $\frac{100}{2}$% gain
✔ 2. 8% gain
✘ 3. 8% loss
✘ 4. $\frac{100}{2}$% loss

Question ID : 441009209204
Option 1 ID : 441009822102
Option 2 ID : 441009822099
Option 3 ID : 441009822101
Option 4 ID : 441009822100

Q.3 A boat can travel at a speed of 21 km/hr in still water. If the speed of the stream is 3 km/hr, find the time taken by the boat to go 48 km downstream.

Ans
✘ 1. 2 hours 20 minutes
✔ 2. 2 hours
✘ 3. 3 hours 10 minutes
✘ 4. 3 hours

Question ID : 441009209535
Option 1 ID : 441009823423
Option 2 ID : 441009823424
Option 3 ID : 441009823425
Option 4 ID : 441009823426

QuickSarkari.com | WhatsApp Channel | Telegram: t.me/quick_sarkari

Q.4 Find the simple interest (in ₹) on ₹3500 as a sum borrowed at 7% per year rate of interest for 6 years.1433

Ans
✗ 1. 1410
✗ 2. 1430
✗ 3. 1510
✓ 4. 1470

Question ID : 441009852715
Option 1 ID : 4410093363834
Option 2 ID : 4410093363835
Option 3 ID : 4410093363833
Option 4 ID : 4410093363832

Q.5 If $x^3y : xy :: xy : a$, then which of the options below gives the value of a?

Ans
✗ 1. $\frac{y^2}{x}$
✓ 2. $\frac{y}{x}$
✗ 3. $\frac{y}{x^2}$
✗ 4. $\frac{y^2}{x^2}$

Question ID : 441009194373
Option 1 ID : 441009765441
Option 2 ID : 441009765439
Option 3 ID : 441009765440
Option 4 ID : 441009765442

Q.6 Find the diameter of a sphere whose surface area is 81π cm^2.

Ans
✗ 1. 10 cm
✓ 2. 9 cm
✗ 3. 8 cm
✗ 4. 11 cm

Question ID : 4410098430
Option 1 ID : 44100933454
Option 2 ID : 44100933453
Option 3 ID : 44100933452
Option 4 ID : 44100933455

QuickSarkari.com | WhatsApp Channel | Telegram: t.me/quick_sarkari

Q.7 The HCF and the LCM of two numbers are 18 and 360, respectively. If one of the numbers is 90, find the other one.

Ans
✗ 1. 100
✗ 2. 5
✓ 3. 72
✗ 4. 45

Question ID : 441009125513
Option 1 ID : 441009498896
Option 2 ID : 441009498898
Option 3 ID : 441009498895
Option 4 ID : 441009498897

Q.8 By how much is 30% of 80 greater than 20% of 50?5756

Ans
✗ 1. 16
✓ 2. 14
✗ 3. 9
✗ 4. 11

Question ID : 441009857038
Option 1 ID : 4410093381127
Option 2 ID : 4410093381124
Option 3 ID : 4410093381125
Option 4 ID : 4410093381126

Q.9 Given that $22^{0.32} = x$, $22^{0.89} = y$ and $x^z = y^8$, then the value of z is close to:

Ans
✗ 1. 24.31
✓ 2. 22.25
✗ 3. 21.02
✗ 4. 25.69

Question ID : 441009913043
Option 1 ID : 4410093606425
Option 2 ID : 4410093606423
Option 3 ID : 4410093606426
Option 4 ID : 4410093606424

QuickSarkari.com | WhatsApp Channel | Telegram: t.me/quick_sarkari

Q.10 In what ratio must a grocer mix two varieties of pulses costing ₹105 and ₹120 per kg, respectively, to get a mixture worth ₹106.50 kg?

Ans
✔ 1. 9 : 1
✘ 2. 7 : 1
✘ 3. 1 : 5
✘ 4. 5 : 1

Question ID : 441009309965
Option 1 ID : 4410091206371
Option 2 ID : 4410091206370
Option 3 ID : 4410091206368
Option 4 ID : 4410091206369

Q.11 X and Y are partners in a business. X puts ₹85,737 and Y puts ₹57,158. X receives 8% of the profit for managing the business and the rest is divided in proportion to their capital. What does X get out of a profit of ₹37,875?5113

Ans
✘ 1. ₹23,892
✘ 2. ₹23,889
✔ 3. ₹23,937
✘ 4. ₹23,979

Question ID : 441009898426
Option 1 ID : 4410093547777
Option 2 ID : 4410093547776
Option 3 ID : 4410093547774
Option 4 ID : 4410093547775

Q.12 Pipe A can fill a tank in 45 minutes, while pipe B takes an hour to fill it up. Pipe A is opened first and starts filling the tank. After 18 minutes, pipe B is also opened. How many more minutes (rounded off to the next minute) are required to fill the tank completely?

Ans
✘ 1. 18 minutes
✘ 2. 10 minutes
✘ 3. 12 minutes
✔ 4. 16 minutes

Question ID : 441009194722
Option 1 ID : 441009766836
Option 2 ID : 441009766838
Option 3 ID : 441009766837
Option 4 ID : 441009766835

QuickSarkari.com | WhatsApp Channel | Telegram: t.me/quick_sarkari

Q.13 An article is marked at ₹1,620 by a shopkeeper. He offers a discount of 10% on the marked price and still earns a profit of 20% on the cost price. Find the cost price of the article.

Ans
✗ 1. ₹1,251
✗ 2. ₹1,278
✓ 3. ₹1,215
✗ 4. ₹1,198

Question ID : 4410091622413
Option 1 ID : 4410096408424
Option 2 ID : 4410096408426
Option 3 ID : 4410096408425
Option 4 ID : 4410096408427

Q.14 A metal pipe is 42 cm long. The inner diameter of its cross-section is 6 cm. The outer diameter is 6.4 cm. Its inner curved surface area is:

$\left(\text{Use } \pi = \frac{22}{7}\right)$

Ans
✗ 1. 528 cm2
✗ 2. 892 cm2
✓ 3. 792 cm2
✗ 4. 968 cm2

Question ID : 441009621334
Option 1 ID : 4410092439468
Option 2 ID : 4410092439470
Option 3 ID : 4410092439469
Option 4 ID : 4410092439471

Q.15 A garrison of 1204 men has provisions for 24 days. How long (in days) will the provisions last if the garrison is increased to 2064 men?

Ans
✗ 1. 15
✗ 2. 16
✗ 3. 13
✓ 4. 14

Question ID : 441009522874
Option 1 ID : 4410092046917
Option 2 ID : 4410092046918
Option 3 ID : 4410092046916
Option 4 ID : 4410092046915

QuickSarkari.com | WhatsApp Channel | Telegram: t.me/quick_sarkari

Q.16 A man sold two articles for ₹1,200 each. On one he gained 25% and on the other he lost 25%. What is his total profit or loss?

Ans
✔ 1. Loss of ₹160
✘ 2. Profit of ₹80
✘ 3. Neither profit nor loss
✘ 4. Loss of ₹80

Question ID : 4410091622210
Option 1 ID : 4410096407630
Option 2 ID : 4410096407631
Option 3 ID : 4410096407628
Option 4 ID : 4410096407629

Q.17 The following line graph shows the number of students who joined a famous school in the academic years 2016, 2017, 2018, 2019 and 2020.
Find the approximate percentage increase in the number of students from the year 2018 to 2019.



Ans
✘ 1. 66.6%
✘ 2. 21%
✘ 3. 75%
✔ 4. 31.5%

Question ID : 441009364133
Option 1 ID : 4410091422783
Option 2 ID : 4410091422784
Option 3 ID : 4410091422782
Option 4 ID : 4410091422785

QuickSarkari.com | WhatsApp Channel | Telegram: t.me/quick_sarkari

Q.18 David invested ₹57,500 in a bank. In two years how much compound interest (in ₹) will he get, considering annual compounding, if the rate of interest for the first year was 4% per annum and the rate for the second year was 3% per annum more than the first year?

Ans
✔ 1. 6,486
✘ 2. 6,736
✘ 3. 6,136
✘ 4. 6,286

Question ID : 441009573220
Option 1 ID : 4410092248000
Option 2 ID : 4410092248003
Option 3 ID : 4410092248002
Option 4 ID : 4410092248001

Q.19 The sides of a rectangular field are 198 m and 175 m long. Its area is equal to the area of a circular field. What is the perimeter (in m) of the circular field?

$\left(\text{Take } \pi = \frac{22}{7}\right)$

Ans
✘ 1. 667
✘ 2. 654
✔ 3. 660
✘ 4. 658

Question ID : 441009621826
Option 1 ID : 4410092441438
Option 2 ID : 4410092441439
Option 3 ID : 4410092441436
Option 4 ID : 4410092441437

Q.20 A car travels from city A to B. It covers the first 30% of the total distance at 40 km/h, the next 40% at 60 km/h, and the remaining distance at a speed which is 20% more than the average speed of the entire journey. If the total distance is 250 km, find the average speed (in km/h, and rounded off to the nearest integer) of the car for the whole journey.

Ans
✔ 1. 53
✘ 2. 52
✘ 3. 54
✘ 4. 51

Question ID : 4410091622236
Option 1 ID : 4410096407735
Option 2 ID : 4410096407734
Option 3 ID : 4410096407733
Option 4 ID : 4410096407732

QuickSarkari.com | WhatsApp Channel | Telegram: t.me/quick_sarkari

Section : English Language and Comprehension

Q.1 Choose the misspelt word in the sentence.

The new intern was extremly knowledgeable, despite his young age.

Ans
✔ 1. extremly
✘ 2. intern
✘ 3. knowledgeable
✘ 4. young

Question ID : 4410091122169
Option 1 ID : 4410094424228
Option 2 ID : 4410094424227
Option 3 ID : 4410094424229
Option 4 ID : 4410094424230

Q.2 Choose the option that best completes the sentence using an appropriate adverb.
She typed the report _____ to meet the submission deadline.

Ans
✘ 1. neatly
✘ 2. efficiently
✔ 3. quickly
✘ 4. accurately

Question ID : 4410091122864
Option 1 ID : 4410094427020
Option 2 ID : 4410094427017
Option 3 ID : 4410094427018
Option 4 ID : 4410094427019

Q.3 Substitute the underlined part of the following sentence by choosing the correct proverb.
If you want something done, speak up! After all, the loudest complainer gets the attention.

Ans
✔ 1. the squeaky wheel gets the grease
✘ 2. the early bird catches the worm
✘ 3. the pen is mightier than the sword
✘ 4. every cloud has a silver lining

Question ID : 4410091132119
Option 1 ID : 4410094463877
Option 2 ID : 4410094463876
Option 3 ID : 4410094463879
Option 4 ID : 4410094463878

QuickSarkari.com | WhatsApp Channel | Telegram: t.me/quick_sarkari

Q.4 Choose the correctly spelled word that replaces the misspelled word in the sentence below.

The principal addressed the issue of indisipline firmly during the assembly.

Ans
1. asembly
2. indiscipline
3. adressed
4. principle

Question ID : 4410091129036
Option 1 ID : 4410094451693
Option 2 ID : 4410094451692
Option 3 ID : 4410094451691
Option 4 ID : 4410094451690

Q.5 Select the most appropriate option to fill in the blank.

After a lot of discussion, they finally decided to _____ the hatchet and end their differences.

Ans
1. fix
2. resolve
3. bury
4. settle

Question ID : 441009823522
Option 1 ID : 4410093248177
Option 2 ID : 4410093248176
Option 3 ID : 4410093248175
Option 4 ID : 4410093248174

Q.6 Rearrange the following segments to form a coherent statement.

(P) but by taking a rickshaw,
(Q) she missed the morning bus,
(R) showing her punctuality
(S) she managed to reach school on time,

Ans
1. PRSQ
2. QPSR
3. PQRS
4. RSPQ

Question ID : 4410091313997
Option 1 ID : 4410095187689
Option 2 ID : 4410095187687
Option 3 ID : 4410095187688
Option 4 ID : 4410095187690

QuickSarkari.com | WhatsApp Channel | Telegram: t.me/quick_sarkari

Q.7 In the given question, a statement divided into different segments is given. The first segment (A) is fixed, rearrange the other segments to form a coherent statement.

(A) After the floodwaters receded, the relief teams prioritized
(B) restoring clean water and sanitation to prevent outbreaks,
(C) distributing emergency rations to isolated households,
(D) and coordinating shelter for displaced families,
(E) while assessing infrastructure damage for long-term rebuilding.

Ans
✔ 1. ABCDE
✘ 2. ADCBE
✘ 3. ADECB
✘ 4. AECBD

Question ID : 4410091518743
Option 1 ID : 4410095998246
Option 2 ID : 4410095998248
Option 3 ID : 4410095998247
Option 4 ID : 4410095998249

Q.8 Complete the following sentence by selecting the most appropriate option.

Do you mean Charlie Chaplin, _____ actor?

Ans
✘ 1. that
✘ 2. an
✘ 3. a
✔ 4. the

Question ID : 4410091338093
Option 1 ID : 4410095284391
Option 2 ID : 4410095284394
Option 3 ID : 4410095284393
Option 4 ID : 4410095284392

Q.9 Choose the correct option to complete the sentence.

When you look at _____ stars in _____ sky, do you ever wonder about life elsewhere?

Ans
✘ 1. the, a
✘ 2. an, the
✔ 3. the, the
✘ 4. a, a

Question ID : 4410091671518
Option 1 ID : 4410096596769
Option 2 ID : 4410096596770
Option 3 ID : 4410096596771
Option 4 ID : 4410096596768

QuickSarkari.com | WhatsApp Channel | Telegram: t.me/quick_sarkari

Q.10 Choose the option that can be substituted for the expression: fear of food.

Ans
✗ 1. Cynophobia
✗ 2. Mysophobia
✓ 3. Cibophobia
✗ 4. Phonophobia

Question ID : 4410091526340
Option 1 ID : 4410096028479
Option 2 ID : 4410096028481
Option 3 ID : 4410096028478
Option 4 ID : 4410096028480

Q.11 Select the option that is the most appropriate antonym of the highlighted word in the given sentence.
They believed in an eternal friendship that would last forever.

Ans
✗ 1. perpetual
✓ 2. temporary
✗ 3. immortal
✗ 4. enduring

Question ID : 4410091603202
Option 1 ID : 4410096332006
Option 2 ID : 4410096332004
Option 3 ID : 4410096332005
Option 4 ID : 4410096332007

Q.12 Choose the correct option to complete the sentence.

The organisation ensures equal opportunities for all employees _____ their background or experience level.

Ans
✗ 1. in spite of
✗ 2. because of
✗ 3. instead of
✓ 4. regardless of

Question ID : 4410091523909
Option 1 ID : 4410096018910
Option 2 ID : 4410096018907
Option 3 ID : 4410096018908
Option 4 ID : 4410096018909

QuickSarkari.com | WhatsApp Channel | Telegram: t.me/quick_sarkari

Q.13 Select the option that is the most appropriate antonym of the underlined word in the given sentence.

The town experienced a rapid <u>proliferation</u> of new businesses.

Ans
✔ 1. depletion
✘ 2. extension
✘ 3. accession
✘ 4. distension

Question ID : 4410091639650
Option 1 ID : 4410096476017
Option 2 ID : 4410096476016
Option 3 ID : 4410096476014
Option 4 ID : 4410096476015

Q.14 Replace the highlighted word segment with the appropriate one-word substitute.

With a home library containing over five thousand volumes, it was clear that the professor was an/a <u>individual who has a great love for books</u>.

Ans
✘ 1. stoic
✘ 2. horticulturist
✔ 3. bibliophile
✘ 4. pedestrian

Question ID : 4410091555250
Option 1 ID : 4410096143578
Option 2 ID : 4410096143576
Option 3 ID : 4410096143575
Option 4 ID : 4410096143577

Q.15 Choose the correct option to complete the sentence.

She studied diligently for weeks, _____ she still felt unprepared on the day of the exam.

Ans
✔ 1. but
✘ 2. yet
✘ 3. so
✘ 4. and

Question ID : 4410091524052
Option 1 ID : 4410096019484
Option 2 ID : 4410096019486
Option 3 ID : 4410096019485
Option 4 ID : 4410096019483

QuickSarkari.com | WhatsApp Channel | Telegram: t.me/quick_sarkari

Comprehension:

Read the given passage and answer the questions that follow.
Water security has emerged as a critical global concern as growing populations, climate change and unsustainable consumption place increasing pressure on freshwater resources. Many regions now face recurring shortages due to over-extraction of groundwater, inefficient irrigation practices and pollution of rivers and lakes. These challenges threaten not only drinking water supplies but also food production, public health and economic stability. Sustainable resource management seeks to address these risks by balancing present needs with long-term availability. Strategies such as rainwater harvesting, watershed protection and the reuse of treated wastewater can significantly improve resilience. Equally important is improving governance. Effective water management requires transparent policies, coordination across sectors and the involvement of local communities, who often possess valuable knowledge about regional water systems. Technology also plays a growing role. Data-driven monitoring, efficient irrigation systems and early-warning tools for droughts and floods help optimise water use and reduce waste. However, technology alone cannot ensure water security. Without behavioural change and equitable access, improvements may benefit only a few. Ensuring water security therefore depends on integrating environmental sustainability, social equity and responsible management to safeguard this vital resource for future generations.

SubQuestion No : 16

Q.16 What is the main aim of sustainable resource management?

Ans
✔ 1. Balancing present and future needs

✗ 2. Increase in urban sanitation systems

✗ 3. Over-extraction of groundwater

✗ 4. Centralising water ownership and distribution

Question ID : 4410091587264
Option 1 ID : 4410096269941
Option 2 ID : 4410096269943
Option 3 ID : 4410096269940
Option 4 ID : 4410096269942

QuickSarkari

Comprehension:

Read the given passage and answer the questions that follow.
Water security has emerged as a critical global concern as growing populations, climate change and unsustainable consumption place increasing pressure on freshwater resources. Many regions now face recurring shortages due to over-extraction of groundwater, inefficient irrigation practices and pollution of rivers and lakes. These challenges threaten not only drinking water supplies but also food production, public health and economic stability. Sustainable resource management seeks to address these risks by balancing present needs with long-term availability. Strategies such as rainwater harvesting, watershed protection and the reuse of treated wastewater can significantly improve resilience. Equally important is improving governance. Effective water management requires transparent policies, coordination across sectors and the involvement of local communities, who often possess valuable knowledge about regional water systems. Technology also plays a growing role. Data-driven monitoring, efficient irrigation systems and early-warning tools for droughts and floods help optimise water use and reduce waste. However, technology alone cannot ensure water security. Without behavioural change and equitable access, improvements may benefit only a few. Ensuring water security therefore depends on integrating environmental sustainability, social equity and responsible management to safeguard this vital resource for future generations.

SubQuestion No : 17

Q.17 Which technological tool supports water management?

Ans
✗ 1. Market forecasting tools

✗ 2. Traditional irrigation channels

✓ 3. Data-driven monitoring

✗ 4. Seasonal migration patterns

Question ID : 4410091587266
Option 1 ID : 4410096269951
Option 2 ID : 4410096269948
Option 3 ID : 4410096269949
Option 4 ID : 4410096269950

QuickSarkari.com | WhatsApp Channel | Telegram: t.me/quick_sarkari

Comprehension:

Read the given passage and answer the questions that follow.
Water security has emerged as a critical global concern as growing populations, climate change and unsustainable consumption place increasing pressure on freshwater resources. Many regions now face recurring shortages due to over-extraction of groundwater, inefficient irrigation practices and pollution of rivers and lakes. These challenges threaten not only drinking water supplies but also food production, public health and economic stability. Sustainable resource management seeks to address these risks by balancing present needs with long-term availability. Strategies such as rainwater harvesting, watershed protection and the reuse of treated wastewater can significantly improve resilience. Equally important is improving governance. Effective water management requires transparent policies, coordination across sectors and the involvement of local communities, who often possess valuable knowledge about regional water systems. Technology also plays a growing role. Data-driven monitoring, efficient irrigation systems and early-warning tools for droughts and floods help optimise water use and reduce waste. However, technology alone cannot ensure water security. Without behavioural change and equitable access, improvements may benefit only a few. Ensuring water security therefore depends on integrating environmental sustainability, social equity and responsible management to safeguard this vital resource for future generations.

SubQuestion No : 18

Q.18 What inference can be drawn about water access?

Ans
✔ 1. It must be equitable.

✗ 2. It requires privatisation.

✗ 3. It improves automatically.

✗ 4. It depends only on rainfall.

Question ID : 4410091587267
Option 1 ID : 4410096269953
Option 2 ID : 4410096269955
Option 3 ID : 4410096269954
Option 4 ID : 4410096269952

QuickSarkari.com | WhatsApp Channel | Telegram: t.me/quick_sarkari

Comprehension:

Read the given passage and answer the questions that follow.
Water security has emerged as a critical global concern as growing populations, climate change and unsustainable consumption place increasing pressure on freshwater resources. Many regions now face recurring shortages due to over-extraction of groundwater, inefficient irrigation practices and pollution of rivers and lakes. These challenges threaten not only drinking water supplies but also food production, public health and economic stability. Sustainable resource management seeks to address these risks by balancing present needs with long-term availability. Strategies such as rainwater harvesting, watershed protection and the reuse of treated wastewater can significantly improve resilience. Equally important is improving governance. Effective water management requires transparent policies, coordination across sectors and the involvement of local communities, who often possess valuable knowledge about regional water systems. Technology also plays a growing role. Data-driven monitoring, efficient irrigation systems and early-warning tools for droughts and floods help optimise water use and reduce waste. However, technology alone cannot ensure water security. Without behavioural change and equitable access, improvements may benefit only a few. Ensuring water security therefore depends on integrating environmental sustainability, social equity and responsible management to safeguard this vital resource for future generations.

SubQuestion No : 19

Q.19 Identify the central theme of the passage:

Ans
✔ 1. Sustainable management is essential for water security.

✘ 2. Technology alone can solve water problems.

✘ 3. Climate change affects only rainfall.

✘ 4. Water scarcity is unavoidable because governance is ineffective.

Question ID : 4410091587268
Option 1 ID : 4410096269957
Option 2 ID : 4410096269958
Option 3 ID : 4410096269956
Option 4 ID : 4410096269959

QuickSarkari

Comprehension:

Read the given passage and answer the questions that follow.
Water security has emerged as a critical global concern as growing populations, climate change and unsustainable consumption place increasing pressure on freshwater resources. Many regions now face recurring shortages due to over-extraction of groundwater, inefficient irrigation practices and pollution of rivers and lakes. These challenges threaten not only drinking water supplies but also food production, public health and economic stability. Sustainable resource management seeks to address these risks by balancing present needs with long-term availability. Strategies such as rainwater harvesting, watershed protection and the reuse of treated wastewater can significantly improve resilience. Equally important is improving governance. Effective water management requires transparent policies, coordination across sectors and the involvement of local communities, who often possess valuable knowledge about regional water systems. Technology also plays a growing role. Data-driven monitoring, efficient irrigation systems and early-warning tools for droughts and floods help optimise water use and reduce waste. However, technology alone cannot ensure water security. Without behavioural change and equitable access, improvements may benefit only a few. Ensuring water security therefore depends on integrating environmental sustainability, social equity and responsible management to safeguard this vital resource for future generations.

SubQuestion No : 20

Q.20 Identify the tone of the passage:

Ans
✗ 1. Narrative
✗ 2. Emotional
✗ 3. Sarcastic
✓ 4. Analytical

Question ID : 4410091587269
Option 1 ID : 4410096269961
Option 2 ID : 4410096269963
Option 3 ID : 4410096269962
Option 4 ID : 4410096269960

Section : Hindi Language and Comprehension

Q.1 दिए गए वाक्य के रिक्त स्थान में मूल क्रिया-विशेषण शब्द का प्रयोग करें -
'रीमा आज कार्यालय से चली गयी।

Ans
✗ 1. काफी
✗ 2. ठीक
✗ 3. हरेक
✓ 4. अचानक

Question ID : 4410091528243
Option 1 ID : 4410096036166
Option 2 ID : 4410096036165
Option 3 ID : 4410096036164
Option 4 ID : 4410096036163

Q.2 दिये गये वाक्य के किस भाग में त्रुटि है?
साहित्यकार की लेखनी की परिक्षा पाठकों की संवेदनाओं को प्रभावित करने की क्षमता से होती है।

Ans
✗ 1. प्रभावित करने की क्षमता से होती है।
✓ 2. लेखनी की परिक्षा
✗ 3. पाठकों की संवेदनाओं को
✗ 4. साहित्यकार की

Question ID : 4410091547215
Option 1 ID : 4410096111734
Option 2 ID : 4410096111732
Option 3 ID : 4410096111733
Option 4 ID : 4410096111731

Q.3 निम्नलिखित वाक्य में रेखांकित शब्द के विलोम शब्द का चयन दिए गए विकल्पों में से कीजिए-
'**तिरस्कृत**' को गले लगाना महानता है।

Ans
✓ 1. पुरस्कृत
✗ 2. उत्प्रेरित
✗ 3. निन्द्य
✗ 4. विस्मृत

Question ID : 4410091618694
Option 1 ID : 4410096393649
Option 2 ID : 4410096393648
Option 3 ID : 4410096393647
Option 4 ID : 4410096393650

Q.4 'चिड़िया के ये बच्चे ----------हैं'। उपयुक्त विशेषण चुनकर वाक्य पूर्ण करें।

Ans
✗ 1. चुगते
✗ 2. बैठे
✗ 3. उड़ते
✓ 4. नन्हें

Question ID : 4410091263154
Option 1 ID : 4410094985554
Option 2 ID : 4410094985552
Option 3 ID : 4410094985553
Option 4 ID : 4410094985551

QuickSarkari.com | WhatsApp Channel | Telegram: t.me/quick_sarkari

Q.5 दिए गए वाक्य में उचित प्रेरणार्थक क्रिया शब्द का चयन करके रिक्त स्थान की पूर्ति करें -
अधिकारियों ने नगरपालिका से सड़कों की मरम्मत के लिए कर्मचारियों को सामग्री ----------
--।

Ans
✔ 1. दिलवाई
✘ 2. बनवाई
✘ 3. करवाई
✘ 4. सुझाई

Question ID : 4410091547178
Option 1 ID : 4410096111583
Option 2 ID : 4410096111582
Option 3 ID : 4410096111584
Option 4 ID : 4410096111581

Q.6 नीचे एक वाक्य के खंडों को अव्यवस्थित क्रम में लिखा गया है। उस विकल्प का चयन करिए जो वाक्य का सही क्रम बताता हो-
(a) और साहित्य के साथ
(b) गहरा सम्बन्ध है
(c) बहुत ही घनिष्ठ एवं
(d) राष्ट्रीयता का भाषा

Ans
✘ 1. c,b,a,d
✘ 2. b,c,d,a
✘ 3. a,d,c,b
✔ 4. d,a,c,b

Question ID : 441009281083
Option 1 ID : 4410091092262
Option 2 ID : 4410091092261
Option 3 ID : 4410091092259
Option 4 ID : 4410091092260

Q.7 निम्न में से वाक्य में रेखांकित शब्द का विलोम शब्द कौन-सा है ?
'तुलसीदास राम से **<u>अनुरक्त</u>** हैं।'

Ans
✘ 1. विषाक्त
✘ 2. अनुशासित
✘ 3. अनुपालन
✔ 4. विरक्त

Question ID : 4410091626551
Option 1 ID : 4410096424578
Option 2 ID : 4410096424576
Option 3 ID : 4410096424577
Option 4 ID : 4410096424579

QuickSarkari.com | WhatsApp Channel | Telegram: t.me/quick_sarkari

Q.8 बड़ी मिन्नतों के बाद उसने अपना मौन तोड़ा।
वाक्य में प्रयुक्त मौन शब्द का पर्यायवाची क्या है?

Ans
✔ 1. निस्तब्ध
✘ 2. दीप्ति
✘ 3. वसुंधरा
✘ 4. पल्लव

Question ID : 4410091626448
Option 1 ID : 4410096424166
Option 2 ID : 4410096424164
Option 3 ID : 4410096424165
Option 4 ID : 4410096424167

Q.9 "जिसके हस्ताक्षर नीचे अंकित हैं" वाक्यांश के लिए निम्न में से कौनसा सार्थक शब्द है?

Ans
✔ 1. अधोहस्ताक्षरकर्ता
✘ 2. प्रस्तावक
✘ 3. साक्षी
✘ 4. लेखक

Question ID : 4410091285792
Option 1 ID : 4410095074803
Option 2 ID : 4410095074806
Option 3 ID : 4410095074805
Option 4 ID : 4410095074804

Q.10 दिये गये वाक्य के किस भाग में त्रुटि है?

कृषि विज्ञान प्रदर्शिनी में किसानों को नई तकनीक और उपकरणों के बारे में जानकारी दी गई।

Ans
✘ 1. जानकारी दी गई।
✘ 2. किसानों को
✔ 3. कृषि विज्ञान प्रदर्शिनी में
✘ 4. नई तकनीक और उपकरणों के बारे में

Question ID : 4410091547238
Option 1 ID : 4410096111826
Option 2 ID : 4410096111824
Option 3 ID : 4410096111823
Option 4 ID : 4410096111825

QuickSarkari.com | WhatsApp Channel | Telegram: t.me/quick_sarkari

Q.11 निम्नलिखित वाक्य में रेखांकित शब्द के पर्यायवाची शब्द का चयन दिए गए विकल्पों में से कीजिए-
पानी बीच '**<u>मीन</u>**' पियासी।

Ans
✗ 1. शिखी
✗ 2. विभावरी
✓ 3. मत्स्य
✗ 4. शायक

Question ID : 4410091618499
Option 1 ID : 4410096392867
Option 2 ID : 4410096392870
Option 3 ID : 4410096392869
Option 4 ID : 4410096392868

Q.12 उपयुक्त 'कारक' चिह्न का चयन कर रिक्त स्थान की पूर्ति कीजिए।
'रणधीर.....मार पड़ी है।'

Ans
✓ 1. को
✗ 2. ने
✗ 3. का
✗ 4. में

Question ID : 4410091524728
Option 1 ID : 4410096022119
Option 2 ID : 4410096022120
Option 3 ID : 4410096022121
Option 4 ID : 4410096022122

Q.13 निम्नलिखित वाक्य के रिक्त स्थान में उचित कारक चिह्न का प्रयोग करें -
'छत सामान रख दो।'

Ans
✗ 1. ने
✗ 2. से
✗ 3. के लिए
✓ 4. पर

Question ID : 4410091241823
Option 1 ID : 4410094900638
Option 2 ID : 4410094900637
Option 3 ID : 4410094900639
Option 4 ID : 4410094900636

QuickSarkari.com | WhatsApp Channel | Telegram: t.me/quick_sarkari

Q.14 निम्नलिखित वाक्य में से वर्तनी त्रुटि की पहचान कर वाक्य को शुद्ध कीजिए।
'सास्त्रीजी, अपने सादगीपूर्ण जीवन और दृढ़ राष्ट्रभक्ति से देशवासियों के हृदय में अमिट स्थान बना चूके हैं।'

Ans
✔ 1. सास्त्रीजी
✗ 2. राष्ट्रभक्ति
✗ 3. दृढ़
✗ 4. सादगीपूर्ण

Question ID : 4410091629720
Option 1 ID : 4410096436966
Option 2 ID : 4410096436969
Option 3 ID : 4410096436968
Option 4 ID : 4410096436967

Q.15 निम्नलिखित विकल्पों में से रेखांकित शब्द का विलोम पहचानिए।
'शिक्षा ही वह माध्यम है जिसके द्वारा व्यक्ति अपने जीवन का नहीं बल्कि पूरे समाज का <u>उत्थान</u> कर सकता है।'

Ans
✗ 1. साकार
✗ 2. अनिष्ट
✗ 3. गोचर
✔ 4. पतन

Question ID : 4410091629899
Option 1 ID : 4410096437683
Option 2 ID : 4410096437682
Option 3 ID : 4410096437684
Option 4 ID : 4410096437681

QuickSarkari.com | WhatsApp Channel | Telegram: t.me/quick_sarkari

Comprehension:

निम्नलिखित प्रश्नों के उत्तर गद्यांश के आधार पर दीजिए।

वर्धमान महावीर का जन्म ज्ञात्रि क्षत्रिय कुल में कुन्दग्राम नामक वैशाली के उपनगर में हुआ था । उनके पिता सिद्धार्थ एक धनधान्य-संपन्न मुखिया थे और उनकी माता त्रिशला वैशाली के लिच्छवि राजकुमार चेटक की बहन थीं। वर्धमान का विवाह उसकी चचेरी बहन यशोदा से हुआ था। यशोदा के गर्भ से उनकी एक पुत्री का जन्म हुआ था, जो उनके भतीजे जमाली से ब्याही गयी थी। महावीर ने तीस वर्ष की उम्र में अपना घर छोड़ दिया और वे केवल वर्षा ऋतु में विश्राम करते हुए एक संन्यासी के रूप में बारह साल तक भ्रमण करते रहे। तेरहवें साल में कठोर तपस्या और सतत साधना के उपरान्त उन्होंने ज़िम्भिका ग्राम के निकट रिजुपालिका नदी के तट पर एक साल वृछ के नीचे कैवल्य अथवा पूर्ण ज्ञान की प्राप्ति की। उन्होंने अपने जीवन के शेष बत्तीस साल जैन धर्म के प्रचार में और मगध तथा अंग में सन्यासियों को जैन संप्रदाय में संगठित करने में बिता दिये। लेकिन परवर्ती काल में जैन धर्म को गुजरात और राजस्थान में, उत्तर भारत के कुछ भागों में तथा मैसूर में अनुकूल वातावरण मिल गया।

SubQuestion No : 16

Q.16 **गद्यांश के लिए उपयुक्त शीर्षक का चयन कीजिए।**

Ans
- ✔ 1. वर्धमान महावीर
- ✘ 2. गौतम बुद्ध
- ✘ 3. रैदास
- ✘ 4. गुरुगोविंद सिंह

Question ID : 4410091626071
Option 1 ID : 4410096422694
Option 2 ID : 4410096422693
Option 3 ID : 4410096422696
Option 4 ID : 4410096422695

QuickSarkari

Comprehension:

निम्नलिखित प्रश्नों के उत्तर गद्यांश के आधार पर दीजिए।

वर्धमान महावीर का जन्म ज्ञात्रि क्षत्रिय कुल में कुन्दग्राम नामक वैशाली के उपनगर में हुआ था । उनके पिता सिद्धार्थ एक धनधान्य-संपन्न मुखिया थे और उनकी माता त्रिशला वैशाली के लिच्छवि राजकुमार चेटक की बहन थीं। वर्धमान का विवाह उसकी चचेरी बहन यशोदा से हुआ था। यशोदा के गर्भ से उनकी एक पुत्री का जन्म हुआ था, जो उनके भतीजे जमाली से ब्याही गयी थी। महावीर ने तीस वर्ष की उम्र में अपना घर छोड़ दिया और वे केवल वर्षा ऋतु में विश्राम करते हुए एक संन्यासी के रूप में बारह साल तक भ्रमण करते रहे। तेरहवें साल में कठोर तपस्या और सतत साधना के उपरान्त उन्होंने ज़िम्भिका ग्राम के निकट रिजुपालिका नदी के तट पर एक साल वृछ के नीचे कैवल्य अथवा पूर्ण ज्ञान की प्राप्ति की। उन्होंने अपने जीवन के शेष बत्तीस साल जैन धर्म के प्रचार में और मगध तथा अंग में सन्यासियों को जैन संप्रदाय में संगठित करने में बिता दिये। लेकिन परवर्ती काल में जैन धर्म को गुजरात और राजस्थान में, उत्तर भारत के कुछ भागों में तथा मैसूर में अनुकूल वातावरण मिल गया।

SubQuestion No : 17

Q.17 **निम्न में से महावीर का जन्म किस कुल में हुआ था ?**

Ans
- ✗ 1. अवर्ण कुल
- ✗ 2. ब्राहमण कुल
- ✗ 3. वैश्य कुल
- ✓ 4. क्षत्रिय कुल

Question ID : 4410091626073
Option 1 ID : 4410096422704
Option 2 ID : 4410096422701
Option 3 ID : 4410096422702
Option 4 ID : 4410096422703

QuickSarkari

Comprehension:

निम्नलिखित प्रश्नों के उत्तर गद्यांश के आधार पर दीजिए।

वर्धमान महावीर का जन्म ज्ञात्रि क्षत्रिय कुल में कुन्दग्राम नामक वैशाली के उपनगर में हुआ था । उनके पिता सिद्धार्थ एक धनधान्य-संपन्न मुखिया थे और उनकी माता त्रिशला वैशाली के लिच्छवि राजकुमार चेटक की बहन थीं। वर्धमान का विवाह उसकी चचेरी बहन यशोदा से हुआ था। यशोदा के गर्भ से उनकी एक पुत्री का जन्म हुआ था, जो उनके भतीजे जमाली से ब्याही गयी थी। महावीर ने तीस वर्ष की उम्र में अपना घर छोड़ दिया और वे केवल वर्षा ऋतु में विश्राम करते हुए एक संन्यासी के रूप में बारह साल तक भ्रमण करते रहे। तेरहवें साल में कठोर तपस्या और सतत साधना के उपरान्त उन्होंने ज़िम्भिका ग्राम के निकट रिजुपालिका नदी के तट पर एक साल वृछ के नीचे कैवल्य अथवा पूर्ण ज्ञान की प्राप्ति की। उन्होंने अपने जीवन के शेष बत्तीस साल जैन धर्म के प्रचार में और मगध तथा अंग में सन्यासियों को जैन संप्रदाय में संगठित करने में बिता दिये। लेकिन परवर्ती काल में जैन धर्म को गुजरात और राजस्थान में, उत्तर भारत के कुछ भागों में तथा मैसूर में अनुकूल वातावरण मिल गया।

SubQuestion No : 18

Q.18 **निम्न में से महावीर की माता त्रिशला किसकी बहन थीं?**

Ans
✗ 1. धनञ्जय की
✗ 2. विष्णु गुप्त की
✓ 3. चेटक की
✗ 4. चेखव की

Question ID : 4410091626074
Option 1 ID : 4410096422708
Option 2 ID : 4410096422707
Option 3 ID : 4410096422705
Option 4 ID : 4410096422706

QuickSarkari

Comprehension:

निम्नलिखित प्रश्नों के उत्तर गद्यांश के आधार पर दीजिए।

वर्धमान महावीर का जन्म ज्ञात्रि क्षत्रिय कुल में कुन्दग्राम नामक वैशाली के उपनगर में हुआ था । उनके पिता सिद्धार्थ एक धनधान्य-संपन्न मुखिया थे और उनकी माता त्रिशला वैशाली के लिच्छवि राजकुमार चेटक की बहन थीं। वर्धमान का विवाह उसकी चचेरी बहन यशोदा से हुआ था। यशोदा के गर्भ से उनकी एक पुत्री का जन्म हुआ था, जो उनके भतीजे जमाली से ब्याही गयी थी। महावीर ने तीस वर्ष की उम्र में अपना घर छोड़ दिया और वे केवल वर्षा ऋतु में विश्राम करते हुए एक संन्यासी के रूप में बारह साल तक भ्रमण करते रहे। तेरहवें साल में कठोर तपस्या और सतत साधना के उपरान्त उन्होंने ज़िम्भिका ग्राम के निकट रिजुपालिका नदी के तट पर एक साल वृछ के नीचे कैवल्य अथवा पूर्ण ज्ञान की प्राप्ति की। उन्होंने अपने जीवन के शेष बत्तीस साल जैन धर्म के प्रचार में और मगध तथा अंग में सन्यासियों को जैन संप्रदाय में संगठित करने में बिता दिये। लेकिन परवर्ती काल में जैन धर्म को गुजरात और राजस्थान में, उत्तर भारत के कुछ भागों में तथा मैसूर में अनुकूल वातावरण मिल गया।

SubQuestion No : 19

Q.19 **निम्न में से गद्यांश में प्रयुक्त 'भ्रमण' शब्द का अर्थ कौन-सा है ?**

Ans
- ✔ 1. घूमना
- ✘ 2. घमंड
- ✘ 3. घमाशान
- ✘ 4. घनघोर

Question ID : 4410091626075
Option 1 ID : 4410096422709
Option 2 ID : 4410096422710
Option 3 ID : 4410096422712
Option 4 ID : 4410096422711

QuickSarkari

Comprehension:

निम्नलिखित प्रश्नों के उत्तर गद्यांश के आधार पर दीजिए।

वर्धमान महावीर का जन्म ज्ञात्रि क्षत्रिय कुल में कुन्दग्राम नामक वैशाली के उपनगर में हुआ था । उनके पिता सिद्धार्थ एक धनधान्य-संपन्न मुखिया थे और उनकी माता त्रिशला वैशाली के लिच्छवि राजकुमार चेटक की बहन थीं। वर्धमान का विवाह उसकी चचेरी बहन यशोदा से हुआ था। यशोदा के गर्भ से उनकी एक पुत्री का जन्म हुआ था, जो उनके भतीजे जमाली से ब्याही गयी थी। महावीर ने तीस वर्ष की उम्र में अपना घर छोड़ दिया और वे केवल वर्षा ऋतु में विश्राम करते हुए एक संन्यासी के रूप में बारह साल तक भ्रमण करते रहे। तेरहवें साल में कठोर तपस्या और सतत साधना के उपरान्त उन्होंने ज़िम्भिका ग्राम के निकट रिजुपालिका नदी के तट पर एक साल वृछ के नीचे कैवल्य अथवा पूर्ण ज्ञान की प्राप्ति की। उन्होंने अपने जीवन के शेष बत्तीस साल जैन धर्म के प्रचार में और मगध तथा अंग में सन्यासियों को जैन संप्रदाय में संगठित करने में बिता दिये। लेकिन परवर्ती काल में जैन धर्म को गुजरात और राजस्थान में, उत्तर भारत के कुछ भागों में तथा मैसूर में अनुकूल वातावरण मिल गया।

SubQuestion No : 20

Q.20 **निम्न में से गद्यांश में प्रयुक्त शब्द 'कठोर' का विलोम शब्द कौन-सा होगा ?**

Ans
✗ 1. दोयम
✓ 2. कोमल
✗ 3. कमल
✗ 4. सरल

Question ID : 4410091626077
Option 1 ID : 4410096422718
Option 2 ID : 4410096422719
Option 3 ID : 4410096422720
Option 4 ID : 4410096422717

Section : Discipline1

Q.1 What principle should vocational curriculum follow to avoid gender stereotypes?

Ans
✗ 1. Caste purity standards
✓ 2. Freedom from gender roles
✗ 3. Domestic roles for stability
✗ 4. Class-based skill use

Question ID : 4410091557156
Option 1 ID : 4410096151188
Option 2 ID : 4410096151187
Option 3 ID : 4410096151185
Option 4 ID : 4410096151186

QuickSarkari.com | WhatsApp Channel | Telegram: t.me/quick_sarkari

Q.2 In the context of contemporary Indian society, how does the hierarchical caste system typically influence social mobility for individuals from marginalized backgrounds?

Ans
✗ 1. It creates equal opportunities for all individuals
✓ 2. It often limits opportunities for upward mobility
✗ 3. It encourages cross-caste marriages widely
✗ 4. It makes professional achievement the only criterion

Question ID : 4410091678814
Option 1 ID : 4410096623466
Option 2 ID : 4410096623465
Option 3 ID : 4410096623467
Option 4 ID : 4410096623468

Q.3 At what stage do children begin to show concern for a crying friend and start understanding concepts like "mine" and "yours"?

Ans
✗ 1. 5 years old
✗ 2. 12 months old
✓ 3. 3 years old
✗ 4. 6 months old

Question ID : 4410091539827
Option 1 ID : 4410096082666
Option 2 ID : 4410096082664
Option 3 ID : 4410096082665
Option 4 ID : 4410096082663

Q.4 A teenager posits that in the event of human colonisation of Mars, a new legislation would be required to safeguard its environment. This statement most accurately reflects which cognitive ability?

Ans
✓ 1. Abstract and hypothetical reasoning
✗ 2. Preoperational symbolic function
✗ 3. Egocentric speech
✗ 4. Object permanence

Question ID : 4410091541914
Option 1 ID : 4410096090820
Option 2 ID : 4410096090822
Option 3 ID : 4410096090819
Option 4 ID : 4410096090821

QuickSarkari.com | WhatsApp Channel | Telegram: t.me/quick_sarkari

Q.5 A teenager begins to mimic the language and dress style of a famous celebrity seen frequently on television. This behavior is most closely associated with which means of socialization?

Ans
✗ 1. Peer acceptance
✗ 2. Religious teaching
✗ 3. Formal education
✓ 4. Imitation via media

Question ID : 4410091628949
Option 1 ID : 4410096433944
Option 2 ID : 4410096433945
Option 3 ID : 4410096433942
Option 4 ID : 4410096433943

Q.6 A school analyses learner needs, sets objectives, designs aligned learning activities, and evaluates outcomes. Which curriculum approach is this?

Ans
✗ 1. Content-centered approach focusing on material
✓ 2. Behavioural approach with pre-set goals and objectives
✗ 3. Learner-centered approach prioritizing interests
✗ 4. Managerial approach led by school manager

Question ID : 4410091630307
Option 1 ID : 4410096439380
Option 2 ID : 4410096439378
Option 3 ID : 4410096439381
Option 4 ID : 4410096439379

Q.7 Peace education primarily seeks to promote:

Ans
✗ 1. Teach students to compete aggressively
✗ 2. Encourage social divisions
✓ 3. Promote understanding and conflict resolution
✗ 4. Focus only on military training

Question ID : 4410091547359
Option 1 ID : 4410096112303
Option 2 ID : 4410096112306
Option 3 ID : 4410096112304
Option 4 ID : 4410096112305

QuickSarkari.com | WhatsApp Channel | Telegram: t.me/quick_sarkari

Q.8 Which factor involves the impact of shared beliefs, customs, and traditions on personality?

Ans
✔ 1. Cultural factors
✘ 2. Social factors
✘ 3. Genetic factors
✘ 4. Economic factors

Question ID : 4410091540053
Option 1 ID : 4410096083572
Option 2 ID : 4410096083571
Option 3 ID : 4410096083574
Option 4 ID : 4410096083573

Q.9 What quality does peace and international understanding strengthen for democratic citizenship?

Ans
✘ 1. Focusing on material riches
✘ 2. Standardizing global culture
✔ 3. Strengthening respect for human rights
✘ 4. Enhancing national competition

Question ID : 4410091557229
Option 1 ID : 4410096151446
Option 2 ID : 4410096151448
Option 3 ID : 4410096151447
Option 4 ID : 4410096151445

Q.10 What does national integration aim to inspire among individuals?

Ans
✘ 1. Encouraging sectarian interests
✘ 2. Promoting one's regional identity
✔ 3. Placing loyalty to the country above group loyalties
✘ 4. Focusing solely on individual welfare

Question ID : 4410091652125
Option 1 ID : 4410096524365
Option 2 ID : 4410096524363
Option 3 ID : 4410096524364
Option 4 ID : 4410096524366

QuickSarkari.com | WhatsApp Channel | Telegram: t.me/quick_sarkari

Q.11 University Education Commission suggested that school education should:

Ans
✔ 1. Serve both students going to university and those entering work
✘ 2. Separate students strictly into academic and vocational tracks
✘ 3. Avoid vocational components to make strong in theory subjects
✘ 4. Prepare only those who wish to enter university

Question ID : 4410091570587
Option 1 ID : 4410096203321
Option 2 ID : 4410096203320
Option 3 ID : 4410096203322
Option 4 ID : 4410096203319

Q.12 Which of the following options best describes the concept of personality?

Ans
✘ 1. Only emotional traits of a person
✘ 2. The physical appearance of an individual
✔ 3. Unique behavioural patterns
✘ 4. Temporary mood changes

Question ID : 4410091525168
Option 1 ID : 4410096023864
Option 2 ID : 4410096023862
Option 3 ID : 4410096023863
Option 4 ID : 4410096023865

Q.13 Prioritizing Proximodistal development, which task sequence is best?

Ans
✘ 1. Drawing circles, then painting
✘ 2. Sitting up, then neck control
✘ 3. Crawling, then standing
✔ 4. Throwing large ball, then writing

Question ID : 4410091549483
Option 1 ID : 4410096120661
Option 2 ID : 4410096120663
Option 3 ID : 4410096120664
Option 4 ID : 4410096120662

QuickSarkari.com | WhatsApp Channel | Telegram: t.me/quick_sarkari

Q.14 What is the required representation of parents in the School Management Committee as per the RTE Act?

Ans
✔ 1. 75% representation from parent members.
✘ 2. 25% representation from parent members.
✘ 3. 100% representation from parent members.
✘ 4. 50% representation from parent members.

Question ID : 4410091639746
Option 1 ID : 4410096476214
Option 2 ID : 4410096476215
Option 3 ID : 4410096476217
Option 4 ID : 4410096476216

Q.15 Which factor is NOT responsible for the continued existence of the caste system in Indian society?

Ans
✘ 1. Family upbringing enforcing endogamy and traditions
✔ 2. Equal opportunities for economic success across castes
✘ 3. Economic networks providing jobs within caste groups
✘ 4. Religious beliefs in karma and purity-pollution concepts

Question ID : 4410091639601
Option 1 ID : 4410096475907
Option 2 ID : 4410096475909
Option 3 ID : 4410096475908
Option 4 ID : 4410096475906

Q.16 Which of the following best describes the nature of Indian society?

Ans
✘ 1. Uniform and monolithic
✘ 2. Homogeneous and isolated
✔ 3. Diverse and pluralistic
✘ 4. Single-culture and multi-class

Question ID : 4410091616599
Option 1 ID : 4410096385306
Option 2 ID : 4410096385309
Option 3 ID : 4410096385307
Option 4 ID : 4410096385308

QuickSarkari.com | WhatsApp Channel | Telegram: t.me/quick_sarkari

Q.17 A child refrains from cheating on a test primarily because they fear being caught and punished by the teacher. Which characteristic of moral development does this behavior best illustrate?

Ans
✗ 1. Following conscience in the post-conventional stage
✗ 2. Desire to gain approval in the conventional stage
✓ 3. Obedience to avoid punishment in the pre-conventional stage
✗ 4. Respect for rules in the conventional stage

Question ID : 4410091678808
Option 1 ID : 4410096623444
Option 2 ID : 4410096623442
Option 3 ID : 4410096623441
Option 4 ID : 4410096623443

Q.18 Schemas in Piaget's theory are:

Ans
✓ 1. Organized ways understanding experience
✗ 2. External objects shaping behaviour
✗ 3. Temporary rules used randomly
✗ 4. Inborn actions without changes

Question ID : 4410091570542
Option 1 ID : 4410096203140
Option 2 ID : 4410096203143
Option 3 ID : 4410096203141
Option 4 ID : 4410096203142

Q.19 Which of the following best reflects the responsibility of local authorities under RTE-2009 regarding admission of out-of-school children?

Ans
✗ 1. Delegating responsibilities solely to state governments
✗ 2. Charging admission fees for all applicants within their jurisdiction
✗ 3. Restricting admissions to children with prior schooling
✓ 4. Identifying and enrolling all children within their jurisdiction

Question ID : 4410091678827
Option 1 ID : 4410096623520
Option 2 ID : 4410096623519
Option 3 ID : 4410096623517
Option 4 ID : 4410096623518

QuickSarkari.com | WhatsApp Channel | Telegram: t.me/quick_sarkari

Q.20 Personality is best described as:

Ans
✗ 1. Moral and ethical judgements about behaviour
✗ 2. Inborn patterns of temperament alone
✗ 3. Temporary emotional states within an individual
✓ 4. Relatively stable traits guiding behaviour

Question ID : 4410091630203
Option 1 ID : 4410096438941
Option 2 ID : 4410096438939
Option 3 ID : 4410096438938
Option 4 ID : 4410096438940

Section : Discipline2

Q.1 A teacher aims to foster critical thinking and language skills in an early literacy classroom. Which classroom practice best utilizes literature to achieve both these goals simultaneously?

Ans
✗ 1. Having students copy sentences from storybooks
✓ 2. Facilitating group discussions on characters' decisions in stories
✗ 3. Repeating rhymes aloud as a class
✗ 4. Drawing illustrations for favorite story scenes

Question ID : 4410091623592
Option 1 ID : 4410096412952
Option 2 ID : 4410096412953
Option 3 ID : 4410096412954
Option 4 ID : 4410096412955

Q.2 Which of the following best describes experiential learning?

Ans
✗ 1. Learning only from textbooks
✗ 2. Learning by listening to lectures
✗ 3. Learning by rote memorization
✓ 4. Learning through direct experience and reflection

Question ID : 4410091650784
Option 1 ID : 4410096519252
Option 2 ID : 4410096519253
Option 3 ID : 4410096519251
Option 4 ID : 4410096519250

QuickSarkari.com | WhatsApp Channel | Telegram: t.me/quick_sarkari

Q.3 A group member who consistently encourages quieter members to participate demonstrates which positive group pattern?

Ans
✔ 1. Inclusiveness
✘ 2. Confrontation
✘ 3. Withdrawal
✘ 4. Competition

Question ID : 4410091692403
Option 1 ID : 4410096675704
Option 2 ID : 4410096675705
Option 3 ID : 4410096675706
Option 4 ID : 4410096675707

Q.4 Which of the following activities can be done in teaching fiction in the class?

(1) Visualization (2) Suggestion (3) Rewrite (4) Prediction

Ans
✔ 1. (1), (2), (3) and (4)
✘ 2. Only (2)
✘ 3. Only (3)
✘ 4. Only (1)

Question ID : 4410091546754
Option 1 ID : 4410096109889
Option 2 ID : 4410096109890
Option 3 ID : 4410096109888
Option 4 ID : 4410096109887

Q.5 The monitorial system is an early form of peer tutoring where:

Ans
✔ 1. Bright students teach lessons to other students
✘ 2. Parents supervise classroom activities
✘ 3. Teachers teach only one class at a time
✘ 4. Teachers teach only small classes

Question ID : 4410091602348
Option 1 ID : 4410096328968
Option 2 ID : 4410096328969
Option 3 ID : 4410096328966
Option 4 ID : 4410096328967

QuickSarkari.com | WhatsApp Channel | Telegram: t.me/quick_sarkari

Q.6 Why is it important to use multiple sources when assessing early literacy development in children?

Ans
✗ 1. It eliminates the need for teacher input
✓ 2. It captures diverse skills and reduces bias
✗ 3. It ensures that only the highest scores are recorded
✗ 4. It makes assessment faster and easier

Question ID : 4410091608568
Option 1 ID : 4410096353187
Option 2 ID : 4410096353186
Option 3 ID : 4410096353185
Option 4 ID : 4410096353184

Q.7 How does the maxim 'Whole to Part' suggest presenting educational material?

Ans
✗ 1. Focus on partitioning complex knowledge
✗ 2. Begin with specific statements
✓ 3. Start with the complete scenario
✗ 4. Prioritize direct experiences

Question ID : 4410091653636
Option 1 ID : 4410096529891
Option 2 ID : 4410096529893
Option 3 ID : 4410096529890
Option 4 ID : 4410096529892

Q.8 Observation is often undervalued because:

Ans
✓ 1. Modern education emphasises reading and writing over perceptual skills
✗ 2. Teachers receive special incentives only for teaching observation
✗ 3. Observation is considered too difficult for students to learn in classrooms
✗ 4. Most professions do not require developed observational abilities

Question ID : 4410091572367
Option 1 ID : 4410096210456
Option 2 ID : 4410096210459
Option 3 ID : 4410096210457
Option 4 ID : 4410096210458

QuickSarkari.com | WhatsApp Channel | Telegram: t.me/quick_sarkari

Q.9 A teacher wants to foster a love for reading and improve language skills in her classroom. Which classroom practice aligns best with the role of literature in language learning?

Ans
✗ 1. Focusing exclusively on grammar exercises and sentence correction drills.

✓ 2. Encouraging students to read stories and discuss characters, themes, and ideas aloud.

✗ 3. Using only textbooks for reading comprehension without creative or imaginative texts.

✗ 4. Assigning students to memorize long lists of vocabulary words without context.

Question ID : 4410091638098
Option 1 ID : 4410096469990
Option 2 ID : 4410096469988
Option 3 ID : 4410096469991
Option 4 ID : 4410096469989

Q.10 Which key characteristic is shared by all cultural icons according to the stricter parameters of iconicity?

Ans
✗ 1. They must be unique to individuals.

✗ 2. They rely exclusively on aural symbolism.

✓ 3. They are always images.

✗ 4. They are always associated with historical events.

Question ID : 4410091653546
Option 1 ID : 4410096529523
Option 2 ID : 4410096529524
Option 3 ID : 4410096529522
Option 4 ID : 4410096529525

Q.11 Understanding how family, school, and media influence behaviour best illustrates sociology's study of:

Ans
✗ 1. Social norms

✗ 2. Social values

✓ 3. Social institutions

✗ 4. Social relationships

Question ID : 4410091633085
Option 1 ID : 4410096450461
Option 2 ID : 4410096450459
Option 3 ID : 4410096450460
Option 4 ID : 4410096450458

QuickSarkari.com | WhatsApp Channel | Telegram: t.me/quick_sarkari

Q.12 In a classroom where students participate in role-play based on a story's characters, which literacy skills are primarily being developed through this activity?

Ans
✗ 1. Physical coordination and athletic skills are improved.

✗ 2. Scientific observation and classification abilities are enhanced.

✗ 3. Numerical reasoning and calculation skills are practiced.

✓ 4. Speaking, listening, and empathy skills are strengthened.

Question ID : 4410091683532
Option 1 ID : 4410096641057
Option 2 ID : 4410096641056
Option 3 ID : 4410096641055
Option 4 ID : 4410096641054

Q.13 A teacher wants to introduce a mindfulness approach to help students manage exam-related stress. She begins each class with a brief activity where students close their eyes, focus on their breath, and silently notice any bodily sensations without reacting. Which mindfulness component is most directly being engaged in this scenario?

Ans
✗ 1. Striving is being engaged as students focus on their breath and bodily sensations.

✗ 2. Judgment is being engaged as students focus on their breath and bodily sensations.

✗ 3. Intention is being engaged as students focus on their breath and bodily sensations.

✓ 4. Attention is being engaged as students focus on their breath and bodily sensations.

Question ID : 4410091613225
Option 1 ID : 4410096371736
Option 2 ID : 4410096371735
Option 3 ID : 4410096371734
Option 4 ID : 4410096371737

Q.14 How does journal writing foster critical thinking in the process of self-understanding?

Ans
✗ 1. By copying journal entries from peers.

✗ 2. By focusing only on future goals without reflection.

✓ 3. By encouraging analysis of one's beliefs and decisions.

✗ 4. By describing daily events without questioning them.

Question ID : 4410091619212
Option 1 ID : 4410096395718
Option 2 ID : 4410096395719
Option 3 ID : 4410096395717
Option 4 ID : 4410096395716

QuickSarkari.com | WhatsApp Channel | Telegram: t.me/quick_sarkari

Q.15 Why should a lesson plan include specific activities for both introduction and conclusion of a lesson?

Ans
✗ 1. To reduce teacher's burden and talk time
✗ 2. To maximize homework assignments
✗ 3. To manage student attendance on priority basis
✓ 4. To frame learning and reinforce key concepts

Question ID : 4410091678974
Option 1 ID : 4410096624107
Option 2 ID : 4410096624105
Option 3 ID : 4410096624108
Option 4 ID : 4410096624106

Q.16 Young children acquire their first language primarily through continuous exposure, meaningful interaction, and participation in everyday home communication. This process is termed:

Ans
✗ 1. Structured grammar instruction
✓ 2. Natural language acquisition
✗ 3. Controlled vocabulary training
✗ 4. Formal language learning

Question ID : 4410091546893
Option 1 ID : 4410096110442
Option 2 ID : 4410096110441
Option 3 ID : 4410096110443
Option 4 ID : 4410096110440

Q.17 Which term best describes being conscious of thoughts and feelings during class activities?

Ans
✗ 1. Competition
✗ 2. Discipline
✗ 3. Repetition
✓ 4. Self-awareness

Question ID : 4410091629032
Option 1 ID : 4410096434272
Option 2 ID : 4410096434270
Option 3 ID : 4410096434273
Option 4 ID : 4410096434271

QuickSarkari.com | WhatsApp Channel | Telegram: t.me/quick_sarkari

Q.18 What does Piaget's concept of 'conservation' refer to?

Ans
✗ 1. Linking numbers to objects

✗ 2. Performing complex calculations

✗ 3. Ability to count objects correctly

✓ 4. Understanding that quantity remains the same despite changes in shape or appearance

Question ID : 4410091612183
Option 1 ID : 4410096367577
Option 2 ID : 4410096367578
Option 3 ID : 4410096367576
Option 4 ID : 4410096367575

Q.19 According to Auguste Comte, what does the term 'sociology' primarily refer to?

Ans
✗ 1. Application of economic method in studying society and individual

✓ 2. Application of scientific method in studying society and individual

✗ 3. Application of political method in studying society and individual

✗ 4. Application of artistic method in studying society and individual

Question ID : 4410091639951
Option 1 ID : 4410096477012
Option 2 ID : 4410096477010
Option 3 ID : 4410096477013
Option 4 ID : 4410096477011

Q.20 उस विकल्प की पहचान कीजिए जो कक्षा अनुदेश में सिद्धांतों के सूक्ष्म (nuanced) अनुप्रयोग को सबसे यथार्थ रूप से दर्शाता है।

Ans
✗ 1. विषयों को अप्रत्याशित रूप से प्रस्तुत करने से शिक्षार्थियों की स्वतंत्र तर्क क्षमता मजबूत होती है।

✗ 2. अनुदेश के दौरान पाठों के बीच संबंधों को कम करने से ध्यान केंद्रित करने में बढ़ावा मिलता है।

✓ 3. अनुक्रमण विचार यह सुनिश्चित करते हैं कि शिक्षार्थी अवधारणाओं को वैचारिक निरंतरता के साथ समेकित करते हैं।

✗ 4. विषयवस्तु को एकसमान रूप से प्रस्तुत करने से शिक्षार्थी बिना किसी संरचित निर्देशन के अनुकूलन कर सकते हैं।

Question ID : 4410091542414
Option 1 ID : 4410096092760
Option 2 ID : 4410096092759
Option 3 ID : 4410096092762
Option 4 ID : 4410096092761

Section : Discipline3

QuickSarkari.com | WhatsApp Channel | Telegram: t.me/quick_sarkari

Q.1 Why is the practice of ending cheating during examinations and stopping teachers from taking tuitions considered a milestone?

Ans
✔ 1. It aims to improve teaching skills and educational quality
✘ 2. It reduces the need for additional teacher training or instructional support
✘ 3. It decreases the number of students
✘ 4. It allows schools to restructure schedules and classroom time more flexibly

Question ID : 4410091608354
Option 1 ID : 4410096352332
Option 2 ID : 4410096352333
Option 3 ID : 4410096352334
Option 4 ID : 4410096352335

Q.2 In an Indian English classroom, students are encouraged to code-switch between Hindi and English when explaining grammar patterns. This practice best exemplifies which strategy from the context?

Ans
✔ 1. Multilingual scaffolding to support meaning-making
✘ 2. Focusing exclusively on formal written English
✘ 3. Drill-based memorization for error-free performance
✘ 4. Strict correction to eliminate Indianisms

Question ID : 4410091613401
Option 1 ID : 4410096372440
Option 2 ID : 4410096372441
Option 3 ID : 4410096372439
Option 4 ID : 4410096372438

Q.3 Which of the following is the main personal quality required for an effective facilitator in problem-based learning?

Ans
✘ 1. Experience in textbook writing
✘ 2. Advanced computer skills
✘ 3. Strict adherence to traditional methods
✔ 4. Content knowledge and competence

Question ID : 4410091604511
Option 1 ID : 4410096337219
Option 2 ID : 4410096337218
Option 3 ID : 4410096337217
Option 4 ID : 4410096337216

QuickSarkari.com | WhatsApp Channel | Telegram: t.me/quick_sarkari

Q.4 Which play type best encourages social negotiation and conflict resolution skills among peers?

Ans
✗ 1. Parallel play
✗ 2. Associative play
✓ 3. Cooperative play
✗ 4. Solitary play

Question ID : 4410091635491
Option 1 ID : 4410096459984
Option 2 ID : 4410096459985
Option 3 ID : 4410096459986
Option 4 ID : 4410096459983

Q.5 According to Piaget, at which developmental stage does children understand numbers through concrete objects?

Ans
✗ 1. Preoperational stage
✗ 2. Sensorimotor stage
✗ 3. Formal operational stage
✓ 4. Concrete operations stage

Question ID : 4410091546875
Option 1 ID : 4410096110368
Option 2 ID : 4410096110370
Option 3 ID : 4410096110371
Option 4 ID : 4410096110369

Q.6 Which statement best describes parallel play in children's development?

Ans
✗ 1. Children interact socially but without organized structure or goals.
✗ 2. Children play independently without any contact with other children.
✓ 3. Children play alongside each other using similar toys but without interaction.
✗ 4. Children work together toward a common goal with shared materials.

Question ID : 4410091638852
Option 1 ID : 4410096472987
Option 2 ID : 4410096472986
Option 3 ID : 4410096472984
Option 4 ID : 4410096472985

QuickSarkari.com | WhatsApp Channel | Telegram: t.me/quick_sarkari

Q.7 How do alternative schools fundamentally differ from traditional schools based on their core beliefs?

Ans
✗ 1. They do not allow flexible programs for learners from diverse context.

✗ 2. They require all students to study at the same rate with same syllabus.

✓ 3. They believe all students are of value and need to find positive qualities.

✗ 4. They focus on academic excellence of children as a core objective.

Question ID : 4410091609093
Option 1 ID : 4410096355291
Option 2 ID : 4410096355290
Option 3 ID : 4410096355289
Option 4 ID : 4410096355288

Q.8 A teacher observes that some students feel anxious during math lessons and are reluctant to participate. She introduces math games and collaborative activities to make lessons more enjoyable. Which objective is the teacher primarily targeting?

Ans
✗ 1. Strengthening measurement skills

✗ 2. Enhancing computational accuracy

✗ 3. Promoting advanced algebraic concepts

✓ 4. Development of interest and positive attitude

Question ID : 4410091683587
Option 1 ID : 4410096641276
Option 2 ID : 4410096641274
Option 3 ID : 4410096641277
Option 4 ID : 4410096641275

Q.9 A student tries several methods to solve a difficult mathematics problem. After making repeated mistakes, he finally finds the correct solution and uses the same method in similar problems later. This learning best illustrates:

Ans
✓ 1. Trial-and-error learning

✗ 2. Insight learning

✗ 3. Observational learning

✗ 4. Rote memorization

Question ID : 4410091606610
Option 1 ID : 4410096345438
Option 2 ID : 4410096345436
Option 3 ID : 4410096345437
Option 4 ID : 4410096345439

QuickSarkari.com | WhatsApp Channel | Telegram: t.me/quick_sarkari

Q.10 Which sentence correctly uses subject-verb agreement?

Ans
✔ 1. The dogs run in the park every morning.
✘ 2. The dog are running in the park every morning.
✘ 3. The dogs runs in the park every morning.
✘ 4. The dog run in the park every morning.

Question ID : 4410091604147
Option 1 ID : 4410096335766
Option 2 ID : 4410096335769
Option 3 ID : 4410096335767
Option 4 ID : 4410096335768

Q.11 Which of the following is a significant factor that shapes gendered roles in Indian society?

Ans
✘ 1. Natural differences
✘ 2. School uniforms
✘ 3. Media images
✔ 4. Family expectations and traditions

Question ID : 4410091606789
Option 1 ID : 4410096346143
Option 2 ID : 4410096346140
Option 3 ID : 4410096346141
Option 4 ID : 4410096346142

Q.12 In which of the following teaching methods does a student find out everything for himself through complete self-activity or self-learning?

Ans
✘ 1. Deductive method
✘ 2. Lecture method
✘ 3. Inductive method
✔ 4. Heuristic method

Question ID : 4410091546827
Option 1 ID : 4410096110179
Option 2 ID : 4410096110176
Option 3 ID : 4410096110178
Option 4 ID : 4410096110177

QuickSarkari.com | WhatsApp Channel | Telegram: t.me/quick_sarkari

Q.13 Which psychological attitude is most important for a good facilitator to create a supportive classroom environment?

Ans
✗ 1. Competitiveness
✓ 2. Empathy
✗ 3. Strictness
✗ 4. Patience

Question ID : 4410091610649
Option 1 ID : 4410096361477
Option 2 ID : 4410096361475
Option 3 ID : 4410096361476
Option 4 ID : 4410096361478

Q.14 A teacher pairs the sound of a bell with lunchtime in a classroom. Over time, students begin to feel hungry when the bell rings, even without seeing lunch. This is an example of which learning process, and what is the role of the bell?

Ans
✗ 1. Classical conditioning; the bell is the unconditioned stimulus
✗ 2. Trial and error learning; the bell is a reinforcement
✗ 3. Trial and error learning; the bell is the unconditioned stimulus
✓ 4. Classical conditioning; the bell is the conditioned stimulus

Question ID : 4410091609842
Option 1 ID : 4410096358281
Option 2 ID : 4410096358282
Option 3 ID : 4410096358283
Option 4 ID : 4410096358280

Q.15 During a planning session, a school founder proposes rotating leadership roles among staff and making decisions through group consensus. How does this administrative structure align with the alternatives in education described in the context?

Ans
✗ 1. It emphasizes teacher-centric control over student choices
✓ 2. It fosters collective ownership and avoids rigid hierarchies
✗ 3. It prioritizes administrative efficiency over collaboration
✗ 4. It ensures faster decision-making through top-down authority

Question ID : 4410091616429
Option 1 ID : 4410096384640
Option 2 ID : 4410096384639
Option 3 ID : 4410096384641
Option 4 ID : 4410096384638

QuickSarkari.com | WhatsApp Channel | Telegram: t.me/quick_sarkari

Q.16 Which aspect helps educators develop a vision for education?

Ans
✗ 1. Knowledge
✗ 2. Skills
✗ 3. Appearance
✓ 4. Values

Question ID : 4410091630215
Option 1 ID : 4410096438996
Option 2 ID : 4410096438994
Option 3 ID : 4410096438997
Option 4 ID : 4410096438995

Q.17 Listening and reading vocabulary mainly contribute to the development of:

Ans
✗ 1. Spoken vocabulary
✓ 2. Passive vocabulary
✗ 3. Active vocabulary
✗ 4. Written vocabulary

Question ID : 4410091638905
Option 1 ID : 4410096473196
Option 2 ID : 4410096473198
Option 3 ID : 4410096473197
Option 4 ID : 4410096473199

Q.18 The linguistic attitude that strictly demands consistent spelling, adherence to predetermined rules, and precise usage is labeled as:

Ans
✗ 1. Contextual
✓ 2. Prescriptive
✗ 3. Functional
✗ 4. Interpretive

Question ID : 4410091550593
Option 1 ID : 4410096124834
Option 2 ID : 4410096124832
Option 3 ID : 4410096124833
Option 4 ID : 4410096124831

QuickSarkari.com | WhatsApp Channel | Telegram: t.me/quick_sarkari

Q.19 Which example best illustrates how family socialization can shape gendered roles in Indian households?

Ans
✗ 1. Parents enrolling all children in mixed-gender sports and coding clubs
✗ 2. A family discussing gender stereotypes and challenging them together
✓ 3. Assigning boys more outdoor chores while girls do caregiving tasks at home
✗ 4. Parents encouraging all children to rotate chores and make joint decisions

Question ID : 4410091563645
Option 1 ID : 4410096176146
Option 2 ID : 4410096176145
Option 3 ID : 4410096176147
Option 4 ID : 4410096176148

Q.20 What does school culture primarily influence?

Ans
✗ 1. Infrastructure
✗ 2. Curriculum
✓ 3. Behaviour
✗ 4. Attendance

Question ID : 4410091635970
Option 1 ID : 4410096461858
Option 2 ID : 4410096461856
Option 3 ID : 4410096461855
Option 4 ID : 4410096461857

Section : Discipline4

Q.1 Which concept is central to environmental studies?

Ans
✗ 1. Geometry
✓ 2. Sustainability
✗ 3. Botany
✗ 4. Meteorology

Question ID : 4410091631485
Option 1 ID : 4410096444159
Option 2 ID : 4410096444156
Option 3 ID : 4410096444158
Option 4 ID : 4410096444157

QuickSarkari.com | WhatsApp Channel | Telegram: t.me/quick_sarkari

Q.2 How does multimedia technology impact class efficiency in English teaching?

Ans
✗ 1. It restricts the flow of information and makes class monotonous.

✓ 2. It enriches teaching content and makes the best use of class time.

✗ 3. It focuses only on teacher instruction and reduces interactivity.

✗ 4. It reduces opportunities for student participation in learning.

Question ID : 4410091624757
Option 1 ID : 4410096417570
Option 2 ID : 4410096417568
Option 3 ID : 4410096417569
Option 4 ID : 4410096417567

Q.3 Which feature makes a textbook pedagogically effective?

Ans
✗ 1. Dense factual content presented in continuous narrative form

✗ 2. Exclusive focus on summative assessment questions

✓ 3. Inclusion of activities, questions, and multiple perspectives

✗ 4. Emphasis on authoritative explanations without learner engagement

Question ID : 4410091602708
Option 1 ID : 4410096330405
Option 2 ID : 4410096330407
Option 3 ID : 4410096330404
Option 4 ID : 4410096330406

Q.4 Which material is classified as a teaching-learning material (TLM)?

Ans
✗ 1. Register

✗ 2. Bell

✗ 3. Pointer

✓ 4. Textbook

Question ID : 4410091636461
Option 1 ID : 4410096463739
Option 2 ID : 4410096463740
Option 3 ID : 4410096463738
Option 4 ID : 4410096463737

QuickSarkari.com | WhatsApp Channel | Telegram: t.me/quick_sarkari

Q.5 Which skill is most restricted by the Grammar Translation Method (GTM)?

Ans
✗ 1. Vocabulary development
✗ 2. Grammar analysis
✓ 3. Speaking and listening
✗ 4. Reading and writing

Question ID : 4410091602555
Option 1 ID : 4410096329795
Option 2 ID : 4410096329794
Option 3 ID : 4410096329792
Option 4 ID : 4410096329793

Q.6 During lesson planning, a teacher checks the textbook for accuracy of facts and appropriateness of illustrations. What does this activity represent?

Ans
✗ 1. Deliberate memorisation of subject facts
✗ 2. Effective organisation of classroom activities
✓ 3. Systematic analysis of textbook content
✗ 4. Continuous evaluation of student learning

Question ID : 4410091690732
Option 1 ID : 4410096669107
Option 2 ID : 4410096669106
Option 3 ID : 4410096669104
Option 4 ID : 4410096669105

Q.7 Which characteristic is central to the Grammar Translation Method of teaching English?

Ans
✗ 1. Integrating digital tools as the primary medium
✓ 2. Emphasizing grammar–translation practice
✗ 3. Focusing only on spoken fluency
✗ 4. Encouraging experiential, task-based learning

Question ID : 4410091641204
Option 1 ID : 4410096481972
Option 2 ID : 4410096481969
Option 3 ID : 4410096481970
Option 4 ID : 4410096481971

QuickSarkari.com | WhatsApp Channel | Telegram: t.me/quick_sarkari

Q.8 A school leader wants to ensure equitable resource distribution among classrooms. What is the most effective administrative leadership practice in this scenario?

Ans
✗ 1. Distributing supplies equally as per-teacher quotas
✗ 2. Providing resources only to high-performing classes
✗ 3. Delegating all resource decisions to department heads
✓ 4. Implementing a transparent resource allocation policy

Question ID : 4410091642801
Option 1 ID : 4410096488098
Option 2 ID : 4410096488100
Option 3 ID : 4410096488099
Option 4 ID : 4410096488097

Q.9 A teacher organizes an activity where students compare types of housing materials (Science/Physics) used in local villages with the socio-economic status of the residents (Social Science). This instructional design primarily applies the approach of:

Ans
✗ 1. Disciplinary content segmentation
✗ 2. Process skills specialization
✓ 3. Integrated content analysis
✗ 4. Abstract concept simplification

Question ID : 4410091550882
Option 1 ID : 4410096125805
Option 2 ID : 4410096125803
Option 3 ID : 4410096125806
Option 4 ID : 4410096125804

Q.10 A teacher following the GTM mandates that students memorize lengthy bilingual vocabulary lists and translate complex literary passages from their mother tongue (L1) to the target language (L2) in a rigid, literal manner. Which core objective of modern language pedagogy is fundamentally excluded by this GTM practice?

Ans
✓ 1. Promoting spontaneous oral fluency.
✗ 2. Utilizing receptive reading skills.
✗ 3. Focusing on grammatical structure.
✗ 4. Stressing vocabulary memorization.

Question ID : 4410091550940
Option 1 ID : 4410096126030
Option 2 ID : 4410096126027
Option 3 ID : 4410096126029
Option 4 ID : 4410096126028

QuickSarkari.com | WhatsApp Channel | Telegram: t.me/quick_sarkari

Q.11 How does pedagogical leadership fundamentally differ from traditional instructional leadership in shaping a school's learning culture?

Ans
✗ 1. It prioritizes administrative compliance over teaching innovation

✗ 2. It focuses mainly on improving standardized test results

✓ 3. It focuses on values, community involvement, and the purpose of learning

✗ 4. It strictly follows prescribed teaching methods for classroom delivery

Question ID : 4410091604000
Option 1 ID : 4410096335193
Option 2 ID : 4410096335191
Option 3 ID : 4410096335190
Option 4 ID : 4410096335192

Q.12 Which aspect of Social Studies enables students to understand social issues by drawing upon concepts from history, geography, economics, and civics?

Ans
✓ 1. Its interdisciplinary nature

✗ 2. Its role in national integration

✗ 3. Its focus on inquiry-based learning

✗ 4. Its emphasis on civic responsibility

Question ID : 4410091690663
Option 1 ID : 4410096668822
Option 2 ID : 4410096668825
Option 3 ID : 4410096668824
Option 4 ID : 4410096668823

Q.13 The primary-level Environmental Studies (EVS) curriculum mainly aims to:

Ans
✓ 1. Develop awareness of the child's immediate environment

✗ 2. Promote detailed study of environmental laws and policies

✗ 3. Emphasise factual memorisation of ecological terminology

✗ 4. Prepare learners for advanced environmental science courses

Question ID : 4410091583200
Option 1 ID : 4410096254149
Option 2 ID : 4410096254150
Option 3 ID : 4410096254151
Option 4 ID : 4410096254148

QuickSarkari.com | WhatsApp Channel | Telegram: t.me/quick_sarkari

Q.14 During a micro-teaching session, Ms. Rao begins her lesson by relating a new vocabulary word to a recent festival celebrated in the community, asking students how they felt during that event. Which micro-teaching skill is she primarily demonstrating in this scenario?

Ans
- ✗ 1. Skill of Stimulus Variation
- ✗ 2. Skill of Explanation
- ✓ 3. Skill of Introducing a Lesson
- ✗ 4. Skill of Reinforcement

Question ID : 4410091618403
Option 1 ID : 4410096392485
Option 2 ID : 4410096392484
Option 3 ID : 4410096392483
Option 4 ID : 4410096392486

Q.15 Which of the following best illustrates the significance of integrating environmental studies with other subjects in the elementary curriculum?

Ans
- ✓ 1. It helps students see real-world connections across disciplines
- ✗ 2. Restricting EVS activities to indoor classroom exercises
- ✗ 3. Teaching EVS only as a separate subject
- ✗ 4. Covering EVS concepts after finishing all other subjects

Question ID : 4410091646418
Option 1 ID : 4410096501910
Option 2 ID : 4410096501912
Option 3 ID : 4410096501911
Option 4 ID : 4410096501913

Q.16 When measuring school effectiveness, which combination of indicators would most accurately reflect both academic success and a positive school culture?

Ans
- ✗ 1. Number of extracurricular activities offered to all students
- ✓ 2. Student achievement data plus stakeholder views on school climate
- ✗ 3. Only standardized test scores for measuring school performance
- ✗ 4. Teacher workload stats plus budget allocation reports data

Question ID : 4410091611105
Option 1 ID : 4410096363277
Option 2 ID : 4410096363278
Option 3 ID : 4410096363275
Option 4 ID : 4410096363276

QuickSarkari.com | WhatsApp Channel | Telegram: t.me/quick_sarkari

Q.17 Which strategy best evaluates higher-order thinking through open-ended questions?

Ans
1. Peer review method
2. Closed-ended grading
3. Rubric-based assessment
4. Automated scoring

Question ID : 4410091635528
Option 1 ID : 4410096460132
Option 2 ID : 4410096460133
Option 3 ID : 4410096460131
Option 4 ID : 4410096460134

Q.18 A school district has implemented a policy that allocates extracurricular resources equally among schools, regardless of the socioeconomic status of their students. Which approach to equality and justice does this policy most likely reflect?

Ans
1. Compensatory justice for marginalized students
2. Equity-based redistribution for low-income schools
3. Formal equality in resource allocation
4. Procedural fairness in decision making

Question ID : 4410091614915
Option 1 ID : 4410096378458
Option 2 ID : 4410096378460
Option 3 ID : 4410096378457
Option 4 ID : 4410096378459

Q.19 How does justice in society differ from equality?

Ans
1. Justice is for punishment, equality for rights
2. Justice is a legal term, equality is a social goal
3. Justice is fairness; equality is sameness
4. Justice ignores individual needs, equality does not

Question ID : 4410091638503
Option 1 ID : 4410096471699
Option 2 ID : 4410096471701
Option 3 ID : 4410096471698
Option 4 ID : 4410096471700

QuickSarkari.com | WhatsApp Channel | Telegram: t.me/quick_sarkari

Q.20 Which of the following best summarizes the objectives of language teaching-learning in schools?

Ans
✗ 1. Prioritize memorization of literary texts and rules of language and structure

✗ 2. Focus only on grammar, vocabulary, and reading comprehension

✗ 3. Train students exclusively for academic writing and exams

✓ 4. Develop listening, reading, writing, speaking, creativity, and understanding

Question ID : 4410091579670
Option 1 ID : 4410096239975
Option 2 ID : 4410096239973
Option 3 ID : 4410096239976
Option 4 ID : 4410096239974

Section : Discipline5

Q.1 During an English lesson, a teacher plays a recorded story for the students and then asks them to answer questions about the plot. This approach is most closely associated with which category of teaching aids?

Ans
✗ 1. Digital aids

✗ 2. Visual aids

✗ 3. Tactile/Kinesthetic aids

✓ 4. Auditory aids

Question ID : 4410091609109
Option 1 ID : 4410096355355
Option 2 ID : 4410096355353
Option 3 ID : 4410096355354
Option 4 ID : 4410096355352

Q.2 Which of the following activities is an example of recreational mathematics in the classroom?

Ans
✗ 1. Solving structured word problems

✓ 2. Playing number-based puzzles

✗ 3. Memorizing multiplication tables

✗ 4. Listening to teacher explanations

Question ID : 4410091616575
Option 1 ID : 4410096385211
Option 2 ID : 4410096385210
Option 3 ID : 4410096385212
Option 4 ID : 4410096385213

QuickSarkari.com | WhatsApp Channel | Telegram: t.me/quick_sarkari

Q.3 Which of the following activities is commonly organized by science and eco-clubs in schools?

Ans
✗ 1. Organizing inter-school sports competitions
✓ 2. Conducting experiments and awareness programs
✗ 3. Planning annual cultural festivals
✗ 4. Holding language and literature debates

Question ID : 4410091551120
Option 1 ID : 4410096126720
Option 2 ID : 4410096126719
Option 3 ID : 4410096126722
Option 4 ID : 4410096126721

Q.4 Formative assessment techniques primarily utilize what feedback mechanism distinguishing it from summative judgment?

Ans
✗ 1. Standardized comparison against population benchmarks
✓ 2. Descriptive elicitation guiding instructional adjustments
✗ 3. Numerical scoring ranking peer performance levels
✗ 4. Final certification verifying endpoint mastery achieved

Question ID : 4410091564636
Option 1 ID : 4410096180131
Option 2 ID : 4410096180128
Option 3 ID : 4410096180129
Option 4 ID : 4410096180130

Q.5 A teacher often assigns leadership roles to boys and supportive tasks to girls. This classroom practice :

Ans
✗ 1. Supports inclusive decision-making
✓ 2. Reinforces gender stereotypes
✗ 3. Promotes equality
✗ 4. Encourages democratic participation

Question ID : 4410091570303
Option 1 ID : 4410096202200
Option 2 ID : 4410096202198
Option 3 ID : 4410096202197
Option 4 ID : 4410096202199

QuickSarkari.com | WhatsApp Channel | Telegram: t.me/quick_sarkari

Q.6 A school wants to ensure CwSN can participate fully in classroom activities. Which combination of actions best supports this goal?

Ans
✔ 1. Adjusting lesson formats, providing accessible materials, and allowing accommodations

✘ 2. Reducing the curriculum content, limiting technology use, and having no support staff

✘ 3. Ignoring special needs, using only written assessments, and keeping standard seating

✘ 4. Assigning more homework, using one teaching style, and removing group work

Question ID : 4410091633913
Option 1 ID : 4410096453742
Option 2 ID : 4410096453745
Option 3 ID : 4410096453744
Option 4 ID : 4410096453743

Q.7 Which of the following is a disadvantage of a science kit?

Ans
✘ 1. It makes learning more effective for students

✔ 2. It may require frequent replacement of small components

✘ 3. It always offers hands-on learning opportunities for students

✘ 4. It consistently improves the clarity of scientific explanations

Question ID : 4410091548334
Option 1 ID : 4410096116046
Option 2 ID : 4410096116047
Option 3 ID : 4410096116045
Option 4 ID : 4410096116048

Q.8 Which of the following assessment techniques is most appropriate for evaluating higher-order cognitive skills?

Ans
✘ 1. Observation

✘ 2. Checklists

✘ 3. Oral questioning

✔ 4. Essay questions

Question ID : 4410091669663
Option 1 ID : 4410096589537
Option 2 ID : 4410096589538
Option 3 ID : 4410096589536
Option 4 ID : 4410096589539

QuickSarkari.com | WhatsApp Channel | Telegram: t.me/quick_sarkari

Q.9 Which of the following best illustrates the social construction of femininity in schools?

Ans
✔ 1. Encouraging girls to participate more in arts than in sports
✘ 2. Providing equal opportunities in all subjects
✘ 3. Allowing students to choose any extracurricular activity
✘ 4. Assigning science projects to all students regardless of gender

Question ID : 4410091688066
Option 1 ID : 4410096659050
Option 2 ID : 4410096659051
Option 3 ID : 4410096659052
Option 4 ID : 4410096659053

Q.10 In an Indian classroom with students from various linguistic backgrounds, which instructional strategy most effectively promotes inclusive participation and minimizes inequality of learning opportunities?

Ans
✘ 1. Limiting activities to monolingual approaches
✘ 2. Focusing on individual academic performance
✘ 3. Assigning tasks by language proficiency
✔ 4. Using flexible grouping for collaborative projects

Question ID : 4410091617467
Option 1 ID : 4410096388770
Option 2 ID : 4410096388769
Option 3 ID : 4410096388768
Option 4 ID : 4410096388767

Q.11 How are individual differences among students perceived in inclusive education?

Ans
✘ 1. As problems needing strict correction and control
✘ 2. As obstacles preventing efficient classroom management
✔ 3. As a source of richness and diversity for learning
✘ 4. As reasons to separate students into groups

Question ID : 4410091572501
Option 1 ID : 4410096210934
Option 2 ID : 4410096210932
Option 3 ID : 4410096210935
Option 4 ID : 4410096210933

QuickSarkari.com | WhatsApp Channel | Telegram: t.me/quick_sarkari

Q.12 When science is understood as knowledge that must be verifiable, testable, and reproducible, it emphasises its:

Ans
✗ 1. Emphasis on rote memorisation

✓ 2. Empirical foundation

✗ 3. Reliance on authoritative claims

✗ 4. Subjective orientation

Question ID : 4410091550535
Option 1 ID : 4410096124602
Option 2 ID : 4410096124600
Option 3 ID : 4410096124601
Option 4 ID : 4410096124599

Q.13 A school committee is developing guidelines to foster gender inclusion through curriculum and classroom processes. Which policy recommendation would be most effective in challenging the subtle reproduction of gender bias in daily teaching practices?

Ans
✗ 1. Mandating the use of gender-neutral uniforms for all without addressing classroom interactions

✓ 2. Integrating regular teacher training session on recognizing and addressing implicit gender bias

✗ 3. Increasing the number of female authors in the reading list of every subject in the classroom

✗ 4. Organizing extracurricular activities strictly along gender lines for administrative convenience

Question ID : 4410091617314
Option 1 ID : 4410096388156
Option 2 ID : 4410096388155
Option 3 ID : 4410096388157
Option 4 ID : 4410096388158

Q.14 A teacher integrates pattern recognition and symbolic representation in lessons on sequences. What cognitive benefit does this approach offer according to the educational importance of mathematics?

Ans
✗ 1. Limitation of creativity in problem-solving

✓ 2. Cultivation of mental discipline and lateral thinking

✗ 3. Reduction of cognitive load through routine

✗ 4. Improvement of recall speed only

Question ID : 4410091633488
Option 1 ID : 4410096452069
Option 2 ID : 4410096452067
Option 3 ID : 4410096452068
Option 4 ID : 4410096452066

QuickSarkari.com | WhatsApp Channel | Telegram: t.me/quick_sarkari

Q.15 What is the primary reason for using teaching aids in language classes?

Ans
✗ 1. To replace traditional teaching methods

✗ 2. To focus solely on vocabulary

✗ 3. To eliminate the need for textbooks

✓ 4. To enhance learners' learning process

Question ID : 4410091638172
Option 1 ID : 4410096470313
Option 2 ID : 4410096470312
Option 3 ID : 4410096470311
Option 4 ID : 4410096470310

Q.16 Which of the following statements best describes the nature of science?

Ans
✗ 1. Science is only a collection of facts and theories that students memorize.

✗ 2. Science only deals with abstract concepts and not real-world phenomena.

✗ 3. Science is purely theoretical and does not require practical activities or observation.

✓ 4. Science is a systematic process of learning through observation, experimentation, and reasoning.

Question ID : 4410091581943
Option 1 ID : 4410096249015
Option 2 ID : 4410096249018
Option 3 ID : 4410096249017
Option 4 ID : 4410096249016

Q.17 Which classroom scenario reflects the social construction of femininity?

Ans
✗ 1. Boys given leadership

✗ 2. Mixed-gender sports

✓ 3. Girls praised for quietness

✗ 4. Encouraged open debate

Question ID : 4410091635758
Option 1 ID : 4410096461022
Option 2 ID : 4410096461021
Option 3 ID : 4410096461019
Option 4 ID : 4410096461020

QuickSarkari.com | WhatsApp Channel | Telegram: t.me/quick_sarkari

Q.18 How does mathematics validate truth?

Ans
✗ 1. By only using experiments
✓ 2. By relying on logical reasoning
✗ 3. By focusing only on daily life examples
✗ 4. By ignoring systematic study

Question ID : 4410091633941
Option 1 ID : 4410096453854
Option 2 ID : 4410096453855
Option 3 ID : 4410096453857
Option 4 ID : 4410096453856

Q.19 What intervention does the educational reform advocate for learning failures caused by lack of diverse materials (e.g., Braille) and rigid teaching styles?

Ans
✗ 1. Segregated instruction
✗ 2. A medicalized solution
✗ 3. Individualized curriculum
✓ 4. Social Model intervention

Question ID : 4410091560394
Option 1 ID : 4410096163714
Option 2 ID : 4410096163715
Option 3 ID : 4410096163717
Option 4 ID : 4410096163716

Q.20 If a group creates their own math riddles and shares them, what learning approach are they using?

Ans
✓ 1. They are applying creativity through play.
✗ 2. They are copying from a textbook.
✗ 3. They are practicing silent memorization.
✗ 4. They are ignoring group activities.

Question ID : 4410091639178
Option 1 ID : 4410096474285
Option 2 ID : 4410096474286
Option 3 ID : 4410096474287
Option 4 ID : 4410096474288

"

QuickSarkari.com | WhatsApp Channel | Telegram: t.me/quick_sarkari

Quick Sarkari

Thank you for studying with QuickSarkari!

Get the latest Sarkari Naukri notifications, admit cards, results, answer keys and free previous-year papers first - follow us on WhatsApp and Telegram.

Visit www.quicksarkari.com

Join our WhatsApp Channel

https://whatsapp.com/channel/0029VaxxbrREquiPoXTWM229

Join our Telegram Channel

https://t.me/quick_sarkari

Share this PDF with your friends preparing for DSSSB exams.