Quick Sarkari

DSSSB PREVIOUS YEAR PAPER WITH ANSWER KEY

DSSSB Assistant Teacher (Primary) – PRT

18 February 2026 · Shift 1

डीएसएसएसबी सहायक अध्यापक (प्राथमिक) – PRT – 18 फरवरी 2026, शिफ्ट 1 का प्रश्न पत्र, उत्तर कुंजी सहित

200	120 min	1 / −0.25	EN + HI
Questions / प्रश्न	Duration / समय	Marks per Q / अंक	Language / भाषा

Sections: General Intelligence and Reasoning Ability, General Awareness, Arithmetical and Numerical Ability, English Language and Comprehension, Hindi Language and Comprehension, Assistant Teacher (Primary) – PRT

INSIDE THIS PDF / इस PDF में

Question Paper in English + Hindi with Answer Key (correct option marked in green) + answer table — Page 2–47
प्रश्न पत्र अंग्रेज़ी + हिंदी में, उत्तर कुंजी सहित (सही विकल्प हरे रंग में) + उत्तर तालिका

Official DSSSB Response Sheet with Answer Key (correct option ticked in green) — Page 48–116
आधिकारिक DSSSB रिस्पॉन्स शीट, उत्तर कुंजी सहित (सही विकल्प हरे टिक से)

HOW TO USE THIS PAPER / इस पेपर का उपयोग कैसे करें

1. Attempt the paper first as a timed online mock test (link below).
   पहले नीचे दिए लिंक से इसे टाइमर के साथ ऑनलाइन मॉक टेस्ट के रूप में हल करें।
2. Check your score, section-wise analysis and solutions online.
   ऑनलाइन अपना स्कोर, खंड-वार विश्लेषण और हल देखें।
3. Use this PDF for revision. Correct answers are shown in green.
   दोहराने के लिए इस PDF का उपयोग करें। सही उत्तर हरे रंग में दिए गए हैं।

Attempt this paper as a FREE online mock test

इस पेपर को फ्री ऑनलाइन मॉक टेस्ट के रूप में हल करें – टाइमर, स्कोर और हल के साथ

https://quicksarkari.com/dsssb-assistant-teacher-primary-18-february-2026-shift-1-mock-test/

All DSSSB Assistant Teacher (Primary) – PRT papers and mock tests: **quicksarkari.com/dsssb-mock-test/#assistant-teacher-primary**

Join WhatsApp Channel | Join Telegram Channel

DSSSB Assistant Teacher (Primary) – PRT – Question Paper (English + Hindi)

DSSSB सहायक अध्यापक (प्राथमिक) – PRT – प्रश्न पत्र (अंग्रेज़ी + हिंदी)

Exam held on 18 February 2026, Shift 1 · 200 questions · correct answers marked ✔ in green
परीक्षा तिथि 18 फरवरी 2026, शिफ्ट 1 · 200 प्रश्न · सही उत्तर हरे रंग में ✔ से चिह्नित

> The official paper for this shift was in Hindi. The English version of each question is a translation prepared by QuickSarkari; the language-section questions are shown as asked.
> इस शिफ्ट का आधिकारिक प्रश्न पत्र हिंदी में था। प्रत्येक प्रश्न का अंग्रेज़ी संस्करण QuickSarkari द्वारा तैयार किया गया अनुवाद है; भाषा खंड के प्रश्न मूल रूप में दिए गए हैं।

General Intelligence and Reasoning Ability

Q.1 Based on the English alphabetical order, three of the following four letter-clusters are alike in a certain way and thus form a group. Which letter-cluster does NOT belong to that group?
(Note: The odd letter-cluster is not based on the number of consonants/vowels or their position.)

अंग्रेज़ी वर्णमाला क्रम पर आधारित, निम्नलिखित चार अक्षर-समूहों में से तीन एक निश्चित तरीके से समान हैं और इस प्रकार वे एक ग्रुप बनाते हैं। कौन-सा अक्षर-समूह उस ग्रुप से संबंधित नहीं है?
(नोट: असंगत अक्षर-समूह, व्यंजनों/स्वरों की संख्या या उनकी स्थिति पर आधारित नहीं है।)

(1) JHD ✔
(2) ROL
(3) DAX
(4) PMJ

Q.2 Following a certain logic, 7 is related to 31. Following the same logic, 9 is related to 43. Following the same logic, 13 is related to which of the following options?
(NOTE: Operations should be performed on the whole numbers, without breaking down the numbers into their constituent digits.
E.g. 13 – Operations on 13 such as adding/subtracting/multiplying to 13 can be performed. Breaking down 13 into 1 and 3 and then performing mathematical operations on 1 and 3 is not allowed.)

एक निश्चित तर्क का अनुसरण करते हुए, 7 का संबंध 31 से है। समान तर्क का अनुसरण करते हुए, 9 का संबंध 43 से है। उसी तर्क का अनुसरण करने पर, 13 का संबंध निम्नलिखित में से किस विकल्प से हैं?
(नोट: संख्याओं को उनके घटक अंकों में तोड़े बिना, पूर्ण संख्याओं पर संक्रियाएं की जानी चाहिए।
उदाहरण के लिए 13 लीजिए, 13 पर संक्रियाएं जैसे कि 13 में जोड़ना/घटाना/गुणा करना, किया जा सकता है। 13 को 1 और 3 में तोड़ना तथा फिर 1 और 3 पर गणितीय संक्रियाएं करने की अनुमति नहीं है।)

(1) 68
(2) 63
(3) 55
(4) 67 ✔

Q.3 What will come in place of '?' in the given series?
2 4 12 44 ?
दी गई श्रृंखला में '?' के स्थान पर क्या आएगा?
2 4 12 44 ?

(1) 170
(2) 168
(3) 176
(4) 172 ✔

Q.4 Select the option in which the given figure is embedded as its part (rotation is NOT allowed).



उस विकल्प का चयन करें जिसमें दी गई आकृति उसके भाग के रूप में अंतर्निहित है (आकृति को घुमाने की अनुमति नहीं है)।

(1) 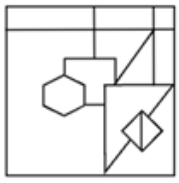 ✔

(2) 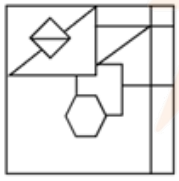

(3) 

(4) 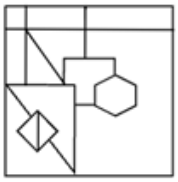

Q.5 Refer to the following letter series and answer the question.
(Left) A B E R F S Q B S Z S S A E H L V X Y (Right)
How many such vowels are there, each of which is immediately preceded by a vowel and also immediately followed by a consonant?
निम्नलिखित अक्षर श्रृंखला का संदर्भ लीजिए और प्रश्न का उत्तर दीजिए।
(बाएँ) A B E R F S Q B S Z S S A E H L V X Y (दाएँ)
ऐसे कितने स्वर हैं जिनमें से प्रत्येक के ठीक पहले एक स्वर है और साथ ही ठीक बाद में एक व्यंजन है?

(1) 4
(2) 2
(3) 1 ✔
(4) 3

QuickSarkari.com | WhatsApp Channel | Telegram: t.me/quick_sarkari

Q.6 63 persons are standing in a row facing north. Raj is 20th from the left end, while Daksh is 17th from the right end. How many persons are there between Raj and Daksh?

63 व्यक्ति उत्तर की ओर अभिमुख होकर एक पंक्ति में खड़े हैं। राज बाएं छोर से 20वें स्थान पर है, जबकि दक्ष दाएं छोर से 17वें स्थान पर है। राज और दक्ष के बीच कितने व्यक्ति हैं?

(1) 22

(2) 25

(3) 24

(4) 26 ✔

Q.7 Refer to the following letter series and answer the question that follows. Counting is to be done from left to right only.

(Left) W E S I C Q M X Z O R Y B G T D F H A K U (Right)

How many such vowels are there, each of which is immediately preceded by a vowel and immediately followed by a consonant

निम्नलिखित अक्षर श्रृंखला का संदर्भ लीजिए और नीचे दिए गए प्रश्न का उत्तर दीजिए। गिनती केवल बाएं से दाएं की जानी चाहिए।

(बाएं) W E S I C Q M X Z O R Y B G T D F H A K U (दाएं)

ऐसे कितने स्वर हैं, जिनमें से प्रत्येक के ठीक पहले एक स्वर और ठीक बाद में एक व्यंजन है

(1) 3

(2) 2

(3) 1

(4) 0 ✔

Q.8 If a water source is placed along the M-N direction as shown in the figure, which of the given options will be the water image of the figure?



यदि जल स्रोत को चित्र में दिखाए अनुसार M-N दिशा के अनुदिश रखा जाए, तो दिए गए विकल्पों में से कौन-सा विकल्प चित्र का जल प्रतिबिंब होगा?

(1)  ✔

(2) 

(3) 

(4) 

QuickSarkari.com | WhatsApp Channel | Telegram: t.me/quick_sarkari

Q.9 What will come in place of '?' in the following equation, if '+' and '÷' are interchanged and '-' and '×' are interchanged?
16 × 4 - 3 ÷ 21 + 3 = ?
निम्नलिखित समीकरण में '+' और '÷' को आपस में बदल देने पर तथा '-' और '×' को आपस में बदल देने पर '?' के स्थान पर क्या आएगा?
16 × 4 - 3 ÷ 21 + 3 = ?

(1) 11 ✔
(2) 15
(3) 23
(4) 19

Q.10 Based on the English alphabetical order, three of the following four letter-cluster pairs are alike in a certain way and thus form a group. Which letter-cluster pair does NOT belong to that group? (Note: The odd letter-cluster pair is not based on the number of consonants/vowels or their position.)
अंग्रेज़ी वर्णमाला क्रम पर आधारित, निम्नलिखित चार अक्षर-समूह युग्मों में से तीन एक निश्चित प्रकार से समान हैं और इस प्रकार वे एक ग्रुप बनाते हैं। कौन-सा अक्षर-समूह युग्म, उस ग्रुप से संबंधित नहीं है? (नोट: असंगत अक्षर-समूह युग्म, व्यंजनों/स्वरों की संख्या या उनकी स्थिति पर आधारित नहीं है।)

(1) IF–HE
(2) MJ–LI
(3) ZW–YV
(4) PM–NN ✔

Q.11 Q, U, I, L, T and S live on six different floors of the same building. The lowermost floor of the building is numbered 1, the floor above it is numbered 2, and so on till the topmost floor is numbered 6. Only two people live between I and S. Only U lives above T. Q lives on an even-numbered floor. I lives on the lowermost floor. How many people live between L and U?
Q, U, I, L, T और S एक ही इमारत के छह अलग-अलग तलों पर रहते हैं। इमारत के सबसे निचले तल का क्रमांक 1 है, उसके ऊपर वाले तल का क्रमांक 2 है, और इसी प्रकार सबसे ऊपर वाले तल का क्रमांक 6 है। I और S के बीच केवल दो व्यक्ति रहते हैं। T के ऊपर केवल U रहता है। Q एक सम क्रमांक वाले तल पर रहता है। I सबसे निचले तल पर रहता है। L और U के बीच कितने व्यक्ति रहते हैं?

(1) Two / दो ✔
(2) Four / चार
(3) One / एक
(4) Three / तीन

Q.12 Based on the English alphabetical order, XBFG is related to JNRS in a certain way. In the same way, UYCD is related to GKOP. Following the same logic, EIMN is related to which of the following?
अंग्रेजी वर्णमाला क्रम के आधार पर, एक निश्चित तरीके से XBFG का संबंध JNRS से है। इसी प्रकार, UYCD का संबंध GKOP से है। समान तर्क का अनुसरण करते हुए, EIMN का संबंध निम्नलिखित में से किससे है?

(1) QUXZ
(2) QVXF
(3) QTXZ
(4) QUYZ ✔

Q.13 In a certain code language, 'PAST' is coded as '9873' and 'STAY' is coded as '1879'. What is the code for 'Y' in the given code language?

एक निश्चित कूट भाषा में, 'PAST' को '9873' के रूप में कूटबद्ध किया जाता है और 'STAY' को '1879' के रूप में कूटबद्ध किया जाता है। दी गई कूट भाषा में 'Y' के लिए कूट क्या है?

(1) 9

(2) 8

(3) **1** ✔

(4) 3

Q.14 Refer to the following series and answer the question. Counting is to be done from left to right only. (All numbers are single-digit numbers only)

(Left) 8 2 1 3 7 9 5 1 4 2 5 8 4 1 3 7 4 2 9 4 5 9 2 1 3 4 5 6 8 (Right)

How many such odd digits are there, each of which is immediately preceded by an odd digit and also immediately followed by an even digit?

निम्नलिखित श्रृंखला का संदर्भ लें और प्रश्न का उत्तर दें। गिनती केवल बाएँ से दाएँ की जानी है। (सभी संख्याएँ केवल एकल अंकीय संख्याएँ हैं)

(बाएँ) 8 2 1 3 7 9 5 1 4 2 5 8 4 1 3 7 4 2 9 4 5 9 2 1 3 4 5 6 8 (दाएँ)

ऐसे कितने विषम अंक हैं जिनमें से प्रत्येक के ठीक पहले एक विषम अंक है और ठीक बाद में एक सम अंक भी है?

(1) One / एक

(2) **More than three / तीन से अधिक** ✔

(3) Three / तीन

(4) Two / दो

Q.15 Seven persons, R, O, A, M, I, N and G, are sitting in a row facing north. No one sits to the left of A. Only four persons sit between A and I. Only three persons sit to the right of R. G sits to the immediate left of N. O is not an immediate neighbour of R. Who sits at the right end of the row?

सात व्यक्ति , R, O, A, M, I, N और G, एक पंक्ति में उत्तर की ओर अभिमुख होकर बैठे हैं। A के बाईं ओर कोई भी नहीं बैठा है। A और I के बीच केवल चार व्यक्ति बैठे हैं। R के दाईं ओर केवल तीन व्यक्ति बैठे हैं। G, N के ठीक बाईं ओर पड़ोस में बैठा है। O, R का निकटतम पड़ोसी नहीं है। पंक्ति के दाहिने छोर पर कौन बैठा है?

(1) M

(2) G

(3) R

(4) **O** ✔

Q.16 What should come in place of ? in the given series based on the English alphabetical order?

NKST VSAB DAIJ LIQR ?

अंग्रेजी वर्णमाला क्रम पर आधारित दी गई श्रृंखला में ? के स्थान पर क्या आना चाहिए?

NKST VSAB DAIJ LIQR ?

(1) TVGY

(2) TZSW

(3) **TQYZ** ✔

(4) TOZY

Q.17 If 1 is added to each odd digit and 2 is subtracted from each even digit in the number 6847153, then which of the following will be the second digit from the left in the new number thus formed?

यदि संख्या 6847153 के प्रत्येक विषम अंक में 1 जोड़ दिया जाए तथा प्रत्येक सम अंक में से 2 घटा दिया जाए, तो इस प्रकार बनी नई संख्या में बाईं ओर से दूसरा अंक निम्नलिखित में से कौन-सा होगा?

(1) 4
(2) 9
(3) 8
(4) 6 ✔

Q.18 This question is based on the following words END RUN WAS CUT How many letters are there in the English alphabetical order between the second letter of the last word from the right and the third letter of the third word from the left?

यह प्रश्न निम्नलिखित शब्दों पर आधारित है END RUN WAS CUT दाईं ओर से अंतिम शब्द के दूसरे अक्षर और बाईं ओर से तीसरे शब्द के तीसरे अक्षर के बीच अंग्रेजी वर्णमाला क्रम में कितने अक्षर हैं?

(1) Four / चार ✔
(2) Six / छह
(3) Seven / सात
(4) Eight / आठ

Q.19 G is the father of L. L is the son of U. T is the brother of N. N is the son of U. How is G related to N?

G, L का पिता है। L, U का पुत्र है। T, N का भाई है। N, U का पुत्र है। G का N से क्या संबंध है?

(1) Father / पिता ✔
(2) Son / पुत्र
(3) Brother / भाई
(4) Husband / पति

Q.20 Six boxes G, H, I, J, K and L are kept one above the other, but not necessarily in the same order. Only two boxes are kept below K. Only two boxes are kept above J. Only two boxes are kept between J and G. I is kept immediately below H. How many boxes are kept between H and L?

छह बॉक्स G, H, I, J, K और L एक के ऊपर एक रखे गए हैं, लेकिन जरूरी नहीं कि वे इसी क्रम में हों। K के नीचे केवल दो बॉक्स रखे गए हैं। J के ऊपर केवल दो बॉक्स रखे गए हैं। J और G के बीच केवल दो बॉक्स रखे गए हैं। I को H के ठीक नीचे रखा गया है। H और L के बीच कितने बॉक्स रखे गए हैं?

(1) 2
(2) 4
(3) 1
(4) 3 ✔

General Awareness

Q.21 On the map of India, where would the Korba Thermal Power Plant be located?

भारत के मानचित्र पर, कोरबा तापीय विद्युत संयंत्र (Korba Thermal Power Plant) कहां स्थित होगा?

(1) Chhattisgarh / छत्तीसगढ़ ✔
(2) Maharashtra / महाराष्ट्र
(3) Jharkhand / झारखंड
(4) Odisha / ओडिशा

Q.22 As per Census 2011, which of the following states had the highest population?

2011 की जनगणना के अनुसार, निम्नलिखित में से किस राज्य की जनसंख्या सबसे अधिक थी?

(1) Uttar Pradesh / उत्तर प्रदेश ✔

(2) West Bengal / पश्चिम बंगाल

(3) Maharashtra / महाराष्ट्र

(4) Bihar / बिहार

Q.23 In which category was Lamine Yamal recognised at the 2025 Laureus Sports Awards?

2025 लॉरियस स्पोर्ट्स अवार्ड्स (Laureus Sports Awards) में लामिन यामल को किस श्रेणी में पहचान मिली?

(1) Most Promising Sportsperson / मोस्ट प्रोमिसिंग स्पोर्ट्सपर्सन (Most Promising Sportsperson)

(2) Rising Star of the Year / राइजिंग स्टार ऑफ द ईयर (Rising Star of the Year)

(3) World Breakthrough of the Year / वर्ल्ड ब्रेकथ्रू ऑफ द ईयर (World Breakthrough of the Year) ✔

(4) Performance of the Year / परफार्मेंश ऑफ द ईयर (Performance of the Year)

Q.24 GNP is an abbreviation used in national income accounting for _____.

GNP, राष्ट्रीय आय लेखांकन में _____के लिए प्रयुक्त होने वाला एक संक्षिप्त रूप है।

(1) Gross Net Product / सकल निवल उत्पाद (Gross Net Product)

(2) Gross National Product / सकल राष्ट्रीय उत्पाद (Gross National Product) ✔

(3) General National Policy / सामान्य राष्ट्रीय नीति (General National Policy)

(4) Gross Nominal Product / सकल नाममात्र उत्पाद (Gross Nominal Product)

Q.25 In which of the following states is the Sakat Chauth festival celebrated on the fourth day of the Krishna Paksha of the month of Magha?

निम्नलिखित में से किस राज्य में माघ महीने के कृष्ण पक्ष के चौथे दिन सकट चौथ (Sakat Chauth) त्योहार मनाया जाता है?

(1) Assam / असम

(2) West Bengal / पश्चिम बंगाल

(3) Uttar Pradesh / उत्तर प्रदेश ✔

(4) Karnataka / कर्नाटक

Q.26 The hydroboration-oxidation reaction was first reported in the late 1950s by whom?

हाइड्रोबोरेनन-ऑक्सीकरण अभिक्रिया की सर्वप्रथम रिपोर्ट 1950 के दशक के उत्तरार्ध में किसके द्वारा की गई थी?

(1) Stephanie Louise Kwolek / स्टेफनी लुईस क्वोलेक (Stephanie Louise Kwolek)

(2) Hermann Emil Louis Fischer / हर्मन एमिल लुईस फिशर (Hermann Emil Louis Fischer)

(3) Herbert Charles Brown / हर्बर्ट चार्ल्स ब्राउन (Herbert Charles Brown) ✔

(4) George Charles de Hevesy / जॉर्ज चार्ल्स डी हेवेसी (George Charles de Hevesy)

Q.27 The defeat of which of the following rulers of the Delhi Sultanate by Babur in 1526 resulted in the establishment of the Mughal Empire in India?

1526 में बाबर द्वारा दिल्ली सल्तनत के निम्नलिखित में से किस शासक को पराजित करने के परिणामस्वरूप भारत में मुगल साम्राज्य की स्थापना हुई?

(1) Alauddin Khalji / अलाउद्दीन खिलजी

(2) Shah Jahan / शाहजहाँ

(3) Ibrahim Lodi / इब्राहिम लोदी ✔

(4) Balban / बलबन

Q.28 The third edition of the India Audio Summit and Awards 2025 was held in which of the following cities?
इंडिया ऑडियो समिट एंड अवार्ड्स (India Audio Summit and Awards) 2025 का तीसरा संस्करण निम्नलिखित में से किस शहर में आयोजित किया गया?

(1) Delhi / दिल्ली
(2) **Mumbai / मुंबई ✔**
(3) Hyderabad / हैदराबाद
(4) Bengaluru / बेंगलुरु

Q.29 Under which of the following Acts has Lok Adalat been given statutory status?
निम्नलिखित में से किस अधिनियम के तहत लोक अदालत को वैधानिक दर्जा दिया गया है?

(1) Legal Services Authorities Act, 1997 / विधिक सेवा प्राधिकरण अधिनियम, 1997
(2) **Legal Services Authorities Act, 1987 / विधिक सेवा प्राधिकरण अधिनियम, 1987 ✔**
(3) Legal Services Authorities Act, 2000 / विधिक सेवा प्राधिकरण अधिनियम, 2000
(4) Legal Services Authorities Act, 1990 / विधिक सेवा प्राधिकरण अधिनियम, 1990

Q.30 Which of the following Rashtrakuta rulers built the famous Kailashnath temple at Ellora?
निम्नलिखित में से किस राष्ट्रकूट शासक ने एलोरा में प्रसिद्ध कैलाशनाथ मंदिर का निर्माण कराया था?

(1) Govinda III / गोविंद तृतीय
(2) Dantidurga / दंतिदुर्ग
(3) Amoghavarsha I / अमोघवर्ष प्रथम
(4) **Krishna I / कृष्ण प्रथम ✔**

Q.31 In October 2025, which country hosted the 47th ASEAN Summit?
अक्टूबर 2025 में, 47वें आसियान (ASEAN) शिखर सम्मेलन की मेजबानी किस देश ने की थी?

(1) Indonesia / इंडोनेशिया
(2) Thailand / थाईलैंड
(3) Philippines / फिलीपींस
(4) **Malaysia / मलेशिया ✔**

Q.32 According to the Constitution of India, which of the following is NOT a qualification for a Member of Parliament?
भारत के संविधान के अनुसार, निम्नलिखित में से कौन-सा संसद सदस्य के लिए अर्हता नहीं है?

(1) The person must be a citizen of India and make an oath or affirmation in the form prescribed by the Third Schedule. / व्यक्ति को भारत का नागरिक होना चाहिए और तीसरी अनुसूची द्वारा निर्धारित प्रपत्र में शपथ या प्रतिज्ञान लेना चाहिए।
(2) The person must be at least 30 years of age in the case of the Rajya Sabha and at least 25 years of age in the case of the Lok Sabha. / व्यक्ति की आयु राज्यसभा के मामले में कम से कम 30 वर्ष और लोक सभा के मामले में कम से कम 25 वर्ष होनी चाहिए।
(3) **The person must have a degree from a university recognised by the University Grants Commission (UGC). / व्यक्ति के पास विश्वविद्यालय अनुदान आयोग (UGC) द्वारा मान्यता प्राप्त विश्वविद्यालय से डिग्री होनी चाहिए। ✔**
(4) The person must possess such other qualifications as may be prescribed/specified by or under any law made by Parliament. / व्यक्ति के पास अतिरिक्त अर्हताएँ होनी चाहिए जो संसद द्वारा पारित विधि द्वारा या उसके अधीन विहित/निर्दिष्ट की जा सकती हैं।

Q.33 Which of the following is NOT a major iron ore belt of India?
निम्नलिखित में से कौन-सा, भारत का प्रमुख लौह अयस्क पेटी नहीं है?

(1) Singhbhum belt / सिंहभूम पेटी
(2) **Ratnagiri-Mumbai / रत्नागिरी-मुंबई ✔**
(3) Ballari-Chitradurga / बल्लारि-चित्रदुर्ग
(4) Durg-Bastar-Chandrapur / दुर्ग-बस्तर-चंद्रपुर

Q.34 Who inaugurated the Indian space startup Skyroot's Infinity Campus on 27 November 2025?
27 नवंबर 2025 को इंडियन स्पेस स्टार्टअप स्काईरूट्स इन्फिनिटी कैम्पस (Indian space startup Skyroot's Infinity Campus) का उद्घाटन किसने किया?

(1) **The Prime Minister of India / भारत के प्रधानमंत्री ✔**
(2) The President of India / भारत के राष्ट्रपति
(3) The Defence Minister / रक्षा मंत्री
(4) The Chairman of ISRO / ISRO के अध्यक्ष

Q.35 Which of the following excavated the site of Chanhudaro in 1931?
निम्नलिखित में से किसने 1931 में चन्हुदड़ो स्थल की खुदाई की थी?

(1) R.D. Banerji / आर.डी. बनर्जी
(2) **N.G. Majumdar / एन.जी. मजूमदार ✔**
(3) Daya Ram Sahni / दया राम साहनी
(4) Flint blades / फ्लिंट ब्लेड्स

Q.36 Which classification method was proposed by J.A.R. Newlands in 1863?
1863 में जेएआर न्यूलैंड्स (J.A.R. Newlands) द्वारा कौन-सी वर्गीकरण विधि प्रतिपादित की गई थी?

(1) Group theory / समूह सिद्धांत
(2) Periodic table / आवर्त सारणी
(3) Law of Triads / त्रिक का नियम
(4) **Law of Octaves / अष्टक नियम ✔**

Q.37 Outsourcing is one of the important outcomes of which process?
आउटसोर्सिंग किस प्रक्रिया के महत्वपूर्ण परिणामों में से एक है?

(1) Communism / साम्यवाद
(2) Liberalisation / उदारीकरण
(3) **Globalisation / वैश्वीकरण ✔**
(4) Capitalisation / पूंजीकरण

Q.38 Match the following Directive Principles of State Policy (DPSP) with their Articles.

DPSP Article

A. Promotion of cooperative societies i. Article 43B

B. Uniform Civil Code ii. Article 44

C. Separation of judiciary from executive iii. Article 40

D. Organisation of village panchayats iv. Article 50

निम्नलिखित राज्य के नीति निर्देशक सिद्धांतों (DPSP) का उनके अनुच्छेदों से मिलान करें।

DPSP अनुच्छेद

A. सहकारी समितियों को प्रोत्साहन देना i. अनुच्छेद 43B

B. समान नागरिक संहिता ii. अनुच्छेद 44

C. कार्यपालिका से न्यायपालिका का पृथक्करण iii. अनुच्छेद 40

D. ग्राम पंचायतों का संगठन iv. अनुच्छेद 50

(1) A-iii, B-i, C-ii, D-iv

(2) A-i, B-iii, C-ii, D-iv

(3) A-i, B-ii, C-iv, D-iii ✔

(4) A-ii, B-i, C-iii, D-iv

Q.39 Which event that took place in 1526 marked the end of the Lodi dynasty and the beginning of Mughal rule?

1526 में घटित किस घटना ने लोदी वंश के अंत और मुगल शासन की शुरुआत को चिह्नित किया?

(1) Battle of Khanwa / खानवा का युद्ध

(2) Battle of Ghaghra / घाघरा का युद्ध

(3) Battle of Panipat / पानीपत का युद्ध ✔

(4) Battle of Chausa / चौसा का युद्ध

Q.40 Which of the following was conferred the Arjuna Award (Lifetime) in Athletics at the National Sports Awards 2024?

निम्नलिखित में से किसे राष्ट्रीय खेल पुरस्कार 2024 में एथलेटिक्स में अर्जुन पुरस्कार (आजीवन) से सम्मानित किया गया?

(1) Sucha Singh / सुचा सिंह ✔

(2) Milkha Singh / मिल्खा सिंह

(3) Neeraj Chopra / नीरज चोपड़ा

(4) Anju Bobby George / अंजू बॉबी जॉर्ज

Arithmetical and Numerical Ability

Q.41 Study the table and answer the question given.
The given table shows the marks obtained by six students in two subjects, S1 and S2.
Student Subject S1 S2 A 150 200 B 160 180 C 200 300 D 120 400 E 300 570 F 100 220 If the maximum marks for subject S1 are 300, then what percentage of marks did student D obtain in subject S1?
तालिका का अध्ययन करें और दिए गए प्रश्न का उत्तर दें।
दी गई तालिका में छह विद्यार्थियों के दो विषयों, S1 और S2 में प्राप्तांक दर्शाए गए हैं।
विद्यार्थी विषय S1 S2 A 150 200 B 160 180 C 200 300 D 120 400 E 300 570 F 100 220 यदि विषय S1 के लिए पूर्णांक 300 हैं, तो विद्यार्थी D ने विषय S1 में कितने प्रतिशत अंक प्राप्त किए हैं?

(1) 45%
(2) 30%
(3) 40% ✔
(4) 50%

Q.42 A person crosses a bridge in 37 minutes by riding a bicycle at a speed of 90 km/hr. Find the length of the bridge.
एक व्यक्ति 90 km/hr की चाल से साइकिल चलाकर एक पुल को 37 मिनट में पार करता है। पुल की लंबाई ज्ञात कीजिए।

(1) 62.5 km
(2) 55.5 km ✔
(3) 57.9 km
(4) 65.6 km

Q.43 The sum of 10 numbers is 696. Find their average.
10 संख्याओं का योग 696 है। उनका औसत ज्ञात कीजिए।

(1) 68.6
(2) 69.6 ✔
(3) 67.6
(4) 70.6

Q.44 The external curved surface area of a cylindrical rod is 8100 cm^2. If the length of the rod is 89 cm, then find the external radius of the rod (in cm, rounded off to two decimal places). (Take π = 22/7)
एक बेलनाकार छड़ का बाह्य वक्र पृष्ठीय क्षेत्रफल 8100 cm^2 है। यदि छड़ की लंबाई 89 cm है, तो छड़ की बाह्य त्रिज्या (cm में, दशमलव के दो स्थानों तक पूर्णांकित) ज्ञात कीजिए। (π = 22/7 लीजिए)

(1) 17.93
(2) 12.71
(3) 14.48 ✔
(4) 17.79

Q.45 The marked price of an article is ₹2,500. Giving a discount of 20% on the marked price results in a loss of ₹200. Find the loss percentage (rounded off to two decimal places).

एक वस्तु का अंकित मूल्य ₹2,500 है। अंकित मूल्य पर 20% की छूट देने पर ₹200 की हानि होती है। हानि प्रतिशत (दशमलव के दो स्थानों तक पूर्णांकित) ज्ञात कीजिए।

(1) 10.09%

(2) 10.01%

(3) **9.09%** ✔

(4) 9.05%

Q.46 On what sum (in ₹) will ₹1680 be obtained as simple interest in 4 years at the rate of 8% per annum?

किस राशि (₹ में) पर 4 वर्षों में 8% वार्षिक ब्याज दर से साधारण ब्याज के रूप में ₹1680 प्राप्त होगा?

(1) 5255

(2) 5260

(3) 5265

(4) **5250** ✔

Q.47 Mahesh buys some quantity of barley for ₹7,704. Half of it is sold at a profit of 44%.
If Mahesh wants to earn an overall profit of 47%, then find the selling price (in ₹) of the remaining barley.

महेश ₹7,704 में कुछ मात्रा में जौ खरीदता है। इसका आधा हिस्सा 44% लाभ पर बेचा जाता है।
यदि महेश कुल मिलाकर 47% लाभ अर्जित करना चाहता है, तो शेष जौ का विक्रय मूल्य (₹ में) ज्ञात कीजिए।

(1) **5,778** ✔

(2) 6,773

(3) 5,161

(4) 6,747

Q.48 A shopkeeper mixes two types of rice in the ratio 5 : 3, one of which costs ₹75 per kg and the other costs ₹85 per kg. Find the average price per kg of the mixture.

एक दुकानदार दो प्रकार के चावलों को 5 : 3 के अनुपात में मिलाता है जिनमें से एक की कीमत ₹75 प्रति kg और दूसरे की कीमत ₹85 प्रति kg है। मिश्रण का प्रति kg औसत मूल्य ज्ञात कीजिए।

(1) **₹78.75** ✔

(2) ₹80.58

(3) ₹83.76

(4) ₹76.25

Q.49 Vipul's salary is ₹12,000/month. He spends ₹5,000 on house rent, ₹2,500 on bills, and the rest of the amount is his monthly saving. If he spent his entire monthly saving on celebrating his birthday in his birthday month, find his saving (in ₹) in one year.

विपुल का वेतन ₹12,000/माह है। वह ₹5,000 घर के किराए पर, ₹2,500 बिलों पर खर्च करता है और बाकी की रकम उसकी मासिक बचत है। यदि उसने अपने जन्मदिन के महीने में जन्मदिन मनाने के लिए अपनी पूरी मासिक बचत खर्च कर दी, एक वर्ष में उसकी बचत (₹ में) ज्ञात कीजिए।

(1) 54,000

(2) 40,500

(3) **49,500** ✔

(4) 45,000

Q.50 Find the value of $5 + 3 \times 5 + 4 \times 5^2 + 3 \times 5^3 + 4 \times 5^4$.

$5 + 3 \times 5 + 4 \times 5^2 + 3 \times 5^3 + 4 \times 5^4$ का मान ज्ञात कीजिए।

(1) 2599

(2) **2995 ✔**

(3) 2955

(4) 2959

Q.51 The volume of air inside a square hall whose height is 15 m is 1500 m^3. Find the maximum length of a log that can be placed diagonally inside the hall. (Round off your answer to 2 decimal places)

एक वर्गाकार हॉल जिसकी ऊंचाई 15 m है, के भीतर वायु का आयतन 1500 m^3 है। हॉल के भीतर विकर्ण रूप से जा सकने वाले लट्ठे की अधिकतम लंबाई ज्ञात कीजिए? (अपना उत्तर दशमलव के 2 स्थान तक पूर्णांकित करें)

(1) **20.62 m ✔**

(2) 28.75 m

(3) 27.08 m

(4) 25.45 m

Q.52 Find the value of $2.\overline{2} + 1.\overline{18} - 1.\overline{2}$.

$2.\overline{2} + 1.\overline{18} - 1.\overline{2}$ का मान ज्ञात कीजिए।

(1) 25/11

(2) **24/11 ✔**

(3) 47/22

(4) 43/22

Q.53 X started a business with ₹93,750, and after some months Y also joined the business with ₹75,000. At the end of the year, the profit was divided in the ratio 5 : 3. After how many months did Y join X in the business?

X ने ₹93,750 से एक व्यवसाय शुरू किया, और कुछ महीनों बाद Y भी ₹75,000 के साथ उस व्यवसाय में शामिल हो गया। वर्ष के अंत में लाभ को 5 : 3 के अनुपात में विभाजित किया गया, तो Y कितने महीनों बाद X के साथ व्यापार में शामिल हुआ?

(1) 4

(2) 5

(3) 9

(4) **3 ✔**

Q.54 Rakesh can complete a work in 6 hours. Shivam can complete it in 14 hours. With the help of Rupesh, they completed that work in 3 hours. In how many hours can Rupesh alone complete twice the same work?

राकेश किसी कार्य को 6 घंटे में पूरा कर सकता है। शिवम उसे 14 घंटे में पूरा कर सकता है। रूपेश की सहायता से उन्होंने उस कार्य को 3 घंटे में पूरा कर लिया। रूपेश अकेले उसी कार्य का दो गुना कार्य कितने घंटे में पूरा कर सकता है?

(1) 20

(2) 23

(3) **21 ✔**

(4) 22

QuickSarkari.com | WhatsApp Channel | Telegram: t.me/quick_sarkari

Q.55 A cyclist completes a round of a square field in 18 seconds at a speed of 30 m/s. Find the length (in m) of the side of the field.

एक साइकिल-चालक 30 m/s की चाल से किसी वर्गाकार खेत का चक्कर 18 सेकंड में पूरा करता है। उस खेत की भुजा की लंबाई (m में) ज्ञात कीजिए।

(1) 145

(2) 125

(3) 135 ✔

(4) 155

Q.56 Two pipes, A and B, can fill a tank in 8 minutes and 10 minutes, respectively. Both pipes start filling the tank together, but after 4 minutes they stop due to a technical problem.
Then the remaining part of the tank is filled by a third pipe C, which can fill the tank alone in 12 minutes. How much time will pipe C take to fill the remaining part of the tank?

दो पाइप, A और B, एक टंकी को क्रमशः 8 मिनट और 10 मिनट में भर सकते हैं। दोनों पाइप एक साथ टंकी भरना शुरू करते हैं, लेकिन 4 मिनट बाद एक तकनीकी समस्या के कारण वे रुक जाते हैं।
फिर एक तीसरे पाइप C द्वारा टंकी का शेष भाग भरा जाता है, जो टंकी को अकेले 12 मिनट में भर सकता है। पाइप C को टंकी का शेष भाग भरने में कितना समय लगेगा?

(1) 4.2 minutes / 4.2 मिनट

(2) 2.5 minutes / 2.5 मिनट

(3) 3.1 minutes / 3.1 मिनट

(4) 1.2 minutes / 1.2 मिनट ✔

Q.57 A shopkeeper bought an article for ₹1,200. At what price (in ₹) should he sell the article to earn a profit of 30%?

एक दुकानदार ने ₹1,200 में एक वस्तु खरीदी। उसे 30% लाभ अर्जित करने के लिए, वस्तु को किस कीमत (₹ में) पर बेचना चाहिए?

(1) 1,548

(2) 1,560 ✔

(3) 840

(4) 1,572

Q.58 Gopal has two grandsons, Akshay and Atul. Akshay, aged 14 years, gets some amount from Gopal's property, and Atul, aged 15 years, gets the remaining amount. But Akshay and Atul will get this amount only when they become 21 years old. Till then, the amount will be kept in a bank where it will earn interest at the rate of 4% per annum (compounded annually). When both become 21 years old, they get equal amounts. If the total amount with Gopal was ₹25,500, then how much amount (in ₹) did Gopal initially give to Atul?

गोपाल के दो पौत्र, अक्षय और अतुल हैं। 14 वर्षीय अक्षय को गोपाल की संपत्ति से कुछ धनराशि मिलती है, और 15 वर्षीय अतुल को शेष धनराशि मिलती है। लेकिन अक्षय और अतुल को यह धनराशि तभी मिलेगी जब वे 21 वर्ष के हो जाएंगे। तब तक, धनराशि किसी बैंक में रखी जाएगी जिस पर 4% वार्षिक दर से ब्याज (वार्षिक रूप से संयोजित) अर्जित होगा। जब दोनों 21 वर्ष के हो जाते हैं तो उन्हें समान धनराशि मिलती है। यदि गोपाल के पास कुल धनराशि ₹25,500 थी, तो गोपाल ने शुरू में अतुल को कितनी धनराशि (₹ में) दी थी?

(1) 13,350

(2) 13,000 ✔

(3) 12,500

(4) 12,250

Q.59 Two trains start at the same time from stations X and Y, respectively, and move towards each other. One train runs at a speed of 72 km/h and the other train runs at a speed of 48 km/h.
At the point where they meet, the faster train has covered 96 km more distance than the slower train. What is the distance between stations X and Y?

दो रेलगाड़ियाँ क्रमशः स्टेशन X और Y से एक ही समय पर चलती हैं और एक-दूसरे की ओर बढ़ती हैं।
एक रेलगाड़ी 72 km/h की चाल से चलती है और दूसरी रेलगाड़ी 48 km/h की चाल से चलती है।
जिस बिंदु पर वे मिलती हैं, वहाँ तक तेज़ चलने वाली रेलगाड़ी ने धीमी चलने वाली रेलगाड़ी से 96 km अधिक दूरी तय की है। स्टेशन X और Y के बीच की दूरी कितनी है?

(1) 420 km
(2) 520 km
(3) 480 km ✔
(4) 450 km

Q.60 Ten persons can complete a work in 8 days working 6 hours per day. If they work 8 hours per day, how many persons will be required to complete the same work in 4 days?

दस व्यक्ति प्रतिदिन 6 घंटे काम करके किसी कार्य को 8 दिनों में पूरा कर सकते हैं। यदि वे प्रतिदिन 8 घंटे काम करें, तो उसी कार्य को 4 दिनों में पूरा करने के लिए कितने व्यक्तियों की आवश्यकता होगी?

(1) 5
(2) 18
(3) 15 ✔
(4) 10

English Language and Comprehension

Q.61 Select the most appropriate option to fill in the blank.
It enables individuals to access vast knowledge resources and connect with people _____.

(1) adversely
(2) critically
(3) globally ✔
(4) presumably

Q.62 Select the most appropriate article to fill in the blank. If no article is needed, select 'No article required'.
_____ book that I bought yesterday is about ancient history.

(1) An
(2) The ✔
(3) A
(4) No article required

Q.63 Choose the word that is similar in meaning to the underlined word.
His astute observations helped the team solve the problem quickly.

(1) diligent
(2) shrewd ✔
(3) vapid
(4) inert

Q.64 Choose the option that can replace the highlighted text with the correct idiom. At the meeting, she took full control of the situation and guided everyone confidently

(1) took the bull by the horns ✔

(2) built castles in the air

(3) turned a blind eye

(4) hit the roof

Q.65 Select the most appropriate option to fill in the blank.
Everyone says that he's now _____ rich.

(1) continuously

(2) repeatedly

(3) enormously ✔

(4) surprisingly

Q.66 Choose the correct conjunction to complete the sentence.
You may not succeed _____ you try your best and remain consistent.

(1) when

(2) while

(3) since

(4) unless ✔

Q.67 In the given question, a statement divided into different segments is provided. Rearrange all the segments to form a coherent statement.
(a) glowing softly in the dark
(b) the lantern swung gently
(c) casting long shadows
(d) across the mossy floor
(e) of the silent forest

(1) ABECD

(2) BAECD

(3) BACDE

(4) ADEBC ✔

Q.68 Identify the antonym of the highlighted word used in the sentence.
The volunteers worked tirelessly to uplift families living in abject poverty.

(1) wretched

(2) haughty ✔

(3) meek

(4) friendly

Q.69 Out of the four alternatives, choose the incorrectly spelt word.

(1) Exhilarate

(2) Perseverence ✔

(3) Conspicuous

(4) Bureaucracy

Q.70 Choose the option that can replace the highlighted text with the correct proverb.
The teacher reminded the students that their hard work or negligence now would determine their future success, meaning you will face the consequences of your actions

(1) Don't judge a book by its cover
(2) **As you sow, so shall you reap ✔**
(3) Every cloud has a silver lining
(4) Actions speak louder than words

Q.71 Select the option that can be used as a one-word substitute for the given group of words.
A wishful longing for something one has known in the past

(1) **Nostalgia ✔**
(2) Retrospection
(3) Sentiment
(4) Unhappiness

Q.72 Replace the highlighted word segment with the appropriate one-word substitute.
He is (a/an) person who is indifferent to pleasure or pain and remains calm in every situation.

(1) novice
(2) **stoic ✔**
(3) egotist
(4) epicure

Q.73 Select the most appropriate option to fill in the blank.
Who invented ___ radio?

(1) an
(2) of
(3) a
(4) **the ✔**

Q.74 Identify the INCORRECTLY spelt word in the given sentence and select the option that rectifies it.
Galileo escaped burning for hersey because he apologised and withdrew his previous statements.

(1) Apologissed
(2) **Heresy ✔**
(3) Withdraw
(4) Gallileo

Q.75 Parts of a sentence are given below in jumbled order. Arrange the parts in the correct order to form a meaningful sentence.
A. turn provides the necessary drive
B. ensures peace and harmony ,which in
C. maintaining discipline in public life
D. for progress and prosperity

(1) BADC
(2) ABCD
(3) DCBA
(4) **CBAD ✔**

QuickSarkari.com | WhatsApp Channel | Telegram: t.me/quick_sarkari

Q.76

Read the passage and answer the following questions.
The rise of remote work has reshaped workplace culture in unexpected ways. Before the pandemic, working from home was considered a privilege available only to a few. Today, many organizations have adopted flexible models where employees choose between remote and in- office work. This shift has allowed people to balance personal and professional responsibilities more effectively. For example, parents can adjust work hours around school schedules, while others save time by avoiding long commutes.
However, remote work is not without its difficulties. Some employees struggle with loneliness, blurred boundaries, or the pressure of being available at all hours. Organizations too face challenges in maintaining team cohesion and ensuring fair performance evaluations. Despite these concerns, research suggests that hybrid work models are likely to stay. They offer the flexibility of remote work while preserving the collaborative atmosphere of offices. As companies redesign their policies, the future workplace will likely prioritize employee well-being, autonomy, and trust.

What is the central idea of the passage?

(1) Productivity decreases with flexibility and lack of monitoring
(2) The decline of productivity in remote work environments
(3) **Hybrid work models are reshaping workplace culture ✔**
(4) Physical office spaces are becoming entirely irrelevant

Q.77

Read the passage and answer the following questions.
The rise of remote work has reshaped workplace culture in unexpected ways. Before the pandemic, working from home was considered a privilege available only to a few. Today, many organizations have adopted flexible models where employees choose between remote and in- office work. This shift has allowed people to balance personal and professional responsibilities more effectively. For example, parents can adjust work hours around school schedules, while others save time by avoiding long commutes.
However, remote work is not without its difficulties. Some employees struggle with loneliness, blurred boundaries, or the pressure of being available at all hours. Organizations too face challenges in maintaining team cohesion and ensuring fair performance evaluations. Despite these concerns, research suggests that hybrid work models are likely to stay. They offer the flexibility of remote work while preserving the collaborative atmosphere of offices. As companies redesign their policies, the future workplace will likely prioritize employee well-being, autonomy, and trust.

What is the structure of the passage?

(1) Cause–effect only
(2) Comparison of two unrelated topics
(3) Chronological narrative
(4) **Benefits-challenges-future outlook ✔**

Q.78

Read the passage and answer the following questions.
The rise of remote work has reshaped workplace culture in unexpected ways. Before the pandemic, working from home was considered a privilege available only to a few. Today, many organizations have adopted flexible models where employees choose between remote and in- office work. This shift has allowed people to balance personal and professional responsibilities more effectively. For example, parents can adjust work hours around school schedules, while others save time by avoiding long commutes.
However, remote work is not without its difficulties. Some employees struggle with loneliness, blurred boundaries, or the pressure of being available at all hours. Organizations too face challenges in maintaining team cohesion and ensuring fair performance evaluations. Despite these concerns, research suggests that hybrid work models are likely to stay. They offer the flexibility of remote work while preserving the collaborative atmosphere of offices. As companies redesign their policies, the future workplace will likely prioritize employee well-being, autonomy, and trust.

What can be inferred about the future of work?

(1) Fully remote setups will vanish due to their negative social impacts.
(2) Employees dislike flexibility because it makes them less productive.
(3) Traditional offices will return because of their superior productivity.
(4) Hybrid models will continue due to their balanced advantages. ✔

Q.79

Read the passage and answer the following questions.
The rise of remote work has reshaped workplace culture in unexpected ways. Before the pandemic, working from home was considered a privilege available only to a few. Today, many organizations have adopted flexible models where employees choose between remote and in- office work. This shift has allowed people to balance personal and professional responsibilities more effectively. For example, parents can adjust work hours around school schedules, while others save time by avoiding long commutes.
However, remote work is not without its difficulties. Some employees struggle with loneliness, blurred boundaries, or the pressure of being available at all hours. Organizations too face challenges in maintaining team cohesion and ensuring fair performance evaluations. Despite these concerns, research suggests that hybrid work models are likely to stay. They offer the flexibility of remote work while preserving the collaborative atmosphere of offices. As companies redesign their policies, the future workplace will likely prioritize employee well-being, autonomy, and trust.

Identify a suitable title for the passage.

(1) Why Remote Work Fails
(2) Redefining Workplace Culture in the Hybrid Era ✔
(3) Productivity in Modern Times
(4) The End of Offices

QuickSarkari.com | WhatsApp Channel | Telegram: t.me/quick_sarkari

Q.80

Read the passage and answer the following questions.
The rise of remote work has reshaped workplace culture in unexpected ways. Before the pandemic, working from home was considered a privilege available only to a few. Today, many organizations have adopted flexible models where employees choose between remote and in- office work. This shift has allowed people to balance personal and professional responsibilities more effectively. For example, parents can adjust work hours around school schedules, while others save time by avoiding long commutes.
However, remote work is not without its difficulties. Some employees struggle with loneliness, blurred boundaries, or the pressure of being available at all hours. Organizations too face challenges in maintaining team cohesion and ensuring fair performance evaluations. Despite these concerns, research suggests that hybrid work models are likely to stay. They offer the flexibility of remote work while preserving the collaborative atmosphere of offices. As companies redesign their policies, the future workplace will likely prioritize employee well-being, autonomy, and trust.

Which real-world trend does this passage best illustrate?

(1) The global return to rigid office structures to maximize productivity
(2) The complete abandonment of urban centers in favour of rural living
(3) The total transition to digital automation to eliminate human interaction
(4) **The prioritization of employee well-being over traditional office presence ✔**

Hindi Language and Comprehension

Q.81 निम्न में से वाक्य में रेखांकित शब्द का पर्यायवाची शब्द कौन-सा है ?
'वह अपने कार्य में दक्ष है।'

(1) निकाय
(2) **कुशल ✔**
(3) निधि
(4) दत्त

Q.82 दिए गए वाक्यांश के लिए सार्थक शब्द बताएं - 'विज्ञान का विद्वान'

(1) **वैज्ञानिक ✔**
(2) व्याख्याता
(3) ज्ञानी
(4) वैदेशिक

Q.83 दिए गए वाक्य को क्रम में लिखें -
1. और मन को भी प्रसन्न करता है
2. बल्कि हमारे आस-पास के वातावरण की भी ज़रूरी है
3. स्वच्छता केवल शरीर की ही नहीं
4. क्योंकि एक साफ-सुथरा वातावरण हमें रोगों से बचाता है

(1) **3241 ✔**
(2) 4123
(3) 3142
(4) 2134

Q.84 निम्नलिखित वाक्य के रेखांकित शब्द का पर्यायवाची कौन-सा नहीं है?
'उसका शरीर रक्त की कमी से पीला पड़ गया।

(1) रुधिर
(2) लोहू
(3) खून
(4) **बचाव ✔**

Q.85 उपयुक्त क्रिया-विशेषण शब्द के प्रयोग से वाक्य पूरा कीजिए।
' मुझे _____ याद आया।'

(1) **अचानक ✔**
(2) बगल
(3) अत्यंत
(4) कुशलपूर्वक

Q.86 "उगल देना"- मुहावरे का क्या अर्थ है?

(1) **भेद खोल देना ✔**
(2) व्यर्थ पैसा गँवा देना
(3) मज़ाक करना
(4) क्रोध करना

Q.87 दिए गए वाक्य के किस भाग में त्रुटि है?
निंदा का उद्गम ही हिनता और कमज़ोरी से होता है।

(1) और कमज़ोरी
(2) **ही हिनता ✔**
(3) निंदा का उद्गम
(4) से होता है।

Q.88 निम्नांकित विकल्पों में से उचित क्रिया का चयन करके वाक्य पूर्ण करें- छायादार वृक्षों के नीचे लेटना कितना अच्छा .....है।

(1) लग रहा
(2) **लगता ✔**
(3) लगते
(4) लगना

Q.89 निम्नांकित विकल्पों में से उचित कारक चिह्न का चयन करके वाक्य पूर्ण करें- सीमा ने अपनी सहेली ..... सुंदर सा उपहार लिया।

(1) को लिए
(2) की लिए
(3) **के लिए ✔**
(4) पर

Q.90 "आँख का अंधा गाँठ का पूरा"- लोकोक्ति का सबसे सटीक अर्थ क्या होगा?

(1) **मूर्ख किन्तु धनी ✔**
(2) जो अपना हित-अनहित न समझ सके
(3) बहुत कम खर्च करनेवाला
(4) बहुत अधिक खर्च करनेवाला

QuickSarkari.com | WhatsApp Channel | Telegram: t.me/quick_sarkari

Q.91 दिए गए वाक्य के रिक्त स्थान में कर्ता कारक चिह्न का प्रयोग करें - 'सुमित घोड़े को दौड़ाया।'

(1) से
(2) को
(3) **ने ✔**
(4) के लिए

Q.92 उचित क्रिया विशेषण शब्द चुनकर वाक्य पूर्ण कीजिए।
'मेरे बुलाने पर वह _____ चला आया।'

(1) **तुरंत ✔**
(2) प्रायः
(3) केवल
(4) दिनभर

Q.93 वाक्य में रेखांकित शब्द का सही विलोम चुनिए।
'सोहन का पूरा घर ख़ुशी में डूबा हुआ था ।'

(1) **गम ✔**
(2) दोष
(3) गौड़
(4) ग्राम

Q.94 मैं रिश्वत को काला नाग समझता हूँ ।
उपर्युक्त रेखांकित शब्द का विलोम क्या होगा ?

(1) अपना
(2) मित्र
(3) सहयोग
(4) **गोरा ✔**

Q.95 निम्न में से 'न रहेगा बाँस न बजेगी बाँसुरी' लोकोक्ति का सही अर्थ कौन है?

(1) **न कारण होगा, न कार्य होगा ✔**
(2) चोर पर रक्षा का विश्वास नहीं
(3) शाम होते ही सोने लगना
(4) हर हालत में मेरा ही लाभ

QuickSarkari.com | WhatsApp Channel | Telegram: t.me/quick_sarkari

Q.96

निम्नलिखित गद्यांश के आधार पर प्रश्नों के उत्तर दें - विज्ञापन से होने वाले आर्थिक[1] लाभ के कारण धन लेकर समाचार प्रकाशित करने की प्रवृति[2] भी आज कल बढ़ी है। इससे पत्रकारिता के मूल्यों का ह्रास हुआ है। मीडिया को लोकतंत्र[3] का चतुर्थ स्तम्भ कहा जाता है। विज्ञापनदाताओं के अनुचित प्रभाव एवं व्यावसायिक लाभ को प्राथमिकता देने के कारण मीडिया के उद्देश्यों पर प्रतिकूल प्रभाव पड़ता है। कई बार यह भी देखने में आता है कि सरकारी विज्ञापनों के लोभ में समाचार-पत्र एवं टीवी चैनल सरकार के विरोध में कुछ प्रकाशित या प्रसारित[4] नहीं कर पाते हैं। विज्ञापन से एकाधिकार की प्रवृत्ति का सृजन होता है। माइक्रोसॉफ्ट प्रारंभ से ही यह प्रयास करती रही है कि कंप्यूटर की दुनिया में उसका एकाधिकार[5] रहे। इसके लिए वह समय-समय पर विज्ञापनों का भी सहारा लेती है।
विज्ञापनों के माध्यम से एकाधिकार की लड़ाई हमेशा माँग में वृद्धि करवाने में सहायक होती है। इस तरह विज्ञापन की दुनिया एक रोचक दुनिया है, जहाँ पैसा है, ग्लैमर है, शोहरत है एवं सफलता की ऊँचाइयाँ हैं।

रेखांकित शब्द 1 का अर्थ बताएं -

(1) रुपया-पैसा ✔
(2) व्यय
(3) शब्द का अर्थ
(4) अर्थ लिखना

Q.97

निम्नलिखित गद्यांश के आधार पर प्रश्नों के उत्तर दें - विज्ञापन से होने वाले आर्थिक[1] लाभ के कारण धन लेकर समाचार प्रकाशित करने की प्रवृति[2] भी आज कल बढ़ी है। इससे पत्रकारिता के मूल्यों का ह्रास हुआ है। मीडिया को लोकतंत्र[3] का चतुर्थ स्तम्भ कहा जाता है। विज्ञापनदाताओं के अनुचित प्रभाव एवं व्यावसायिक लाभ को प्राथमिकता देने के कारण मीडिया के उद्देश्यों पर प्रतिकूल प्रभाव पड़ता है। कई बार यह भी देखने में आता है कि सरकारी विज्ञापनों के लोभ में समाचार-पत्र एवं टीवी चैनल सरकार के विरोध में कुछ प्रकाशित या प्रसारित[4] नहीं कर पाते हैं। विज्ञापन से एकाधिकार की प्रवृत्ति का सृजन होता है। माइक्रोसॉफ्ट प्रारंभ से ही यह प्रयास करती रही है कि कंप्यूटर की दुनिया में उसका एकाधिकार[5] रहे। इसके लिए वह समय-समय पर विज्ञापनों का भी सहारा लेती है।
विज्ञापनों के माध्यम से एकाधिकार की लड़ाई हमेशा माँग में वृद्धि करवाने में सहायक होती है। इस तरह विज्ञापन की दुनिया एक रोचक दुनिया है, जहाँ पैसा है, ग्लैमर है, शोहरत है एवं सफलता की ऊँचाइयाँ हैं।

रेखांकित शब्द 2 का अर्थ बताएं -

(1) उद्देश्य
(2) परोपकार
(3) रुझान या स्वभाव ✔
(4) परिवर्तन

Q.98

निम्नलिखित गद्यांश के आधार पर प्रश्नों के उत्तर दें - विज्ञापन से होने वाले आर्थिक[1] लाभ के कारण धन लेकर समाचार प्रकाशित करने की प्रवृति[2] भी आज कल बढ़ी है। इससे पत्रकारिता के मूल्यों का ह्रास हुआ है। मीडिया को लोकतंत्र[3] का चतुर्थ स्तम्भ कहा जाता है। विज्ञापनदाताओं के अनुचित प्रभाव एवं व्यावसायिक लाभ को प्राथमिकता देने के कारण मीडिया के उद्देश्यों पर प्रतिकूल प्रभाव पड़ता है। कई बार यह भी देखने में आता है कि सरकारी विज्ञापनों के लोभ में समाचार-पत्र एवं टीवी चैनल सरकार के विरोध में कुछ प्रकाशित या प्रसारित[4] नहीं कर पाते हैं। विज्ञापन से एकाधिकार की प्रवृत्ति का सृजन होता है। माइक्रोसॉफ्ट प्रारंभ से ही यह प्रयास करती रही है कि कंप्यूटर की दुनिया में उसका एकाधिकार[5] रहे। इसके लिए वह समय-समय पर विज्ञापनों का भी सहारा लेती है।
विज्ञापनों के माध्यम से एकाधिकार की लड़ाई हमेशा माँग में वृद्धि करवाने में सहायक होती है। इस तरह विज्ञापन की दुनिया एक रोचक दुनिया है, जहाँ पैसा है, ग्लैमर है, शोहरत है एवं सफलता की ऊँचाइयाँ हैं।

रेखांकित शब्द 3 का अर्थ बताएं -

(1) दुनिया
(2) संसार
(3) **जनता का शासन ✔**
(4) गरीब लोग

Q.99

निम्नलिखित गद्यांश के आधार पर प्रश्नों के उत्तर दें - विज्ञापन से होने वाले आर्थिक[1] लाभ के कारण धन लेकर समाचार प्रकाशित करने की प्रवृति[2] भी आज कल बढ़ी है। इससे पत्रकारिता के मूल्यों का ह्रास हुआ है। मीडिया को लोकतंत्र[3] का चतुर्थ स्तम्भ कहा जाता है। विज्ञापनदाताओं के अनुचित प्रभाव एवं व्यावसायिक लाभ को प्राथमिकता देने के कारण मीडिया के उद्देश्यों पर प्रतिकूल प्रभाव पड़ता है। कई बार यह भी देखने में आता है कि सरकारी विज्ञापनों के लोभ में समाचार-पत्र एवं टीवी चैनल सरकार के विरोध में कुछ प्रकाशित या प्रसारित[4] नहीं कर पाते हैं। विज्ञापन से एकाधिकार की प्रवृत्ति का सृजन होता है। माइक्रोसॉफ्ट प्रारंभ से ही यह प्रयास करती रही है कि कंप्यूटर की दुनिया में उसका एकाधिकार[5] रहे। इसके लिए वह समय-समय पर विज्ञापनों का भी सहारा लेती है।
विज्ञापनों के माध्यम से एकाधिकार की लड़ाई हमेशा माँग में वृद्धि करवाने में सहायक होती है। इस तरह विज्ञापन की दुनिया एक रोचक दुनिया है, जहाँ पैसा है, ग्लैमर है, शोहरत है एवं सफलता की ऊँचाइयाँ हैं।

रेखांकित शब्द 4 का अर्थ बताएं -

(1) भेजना
(2) **फैलाया हुआ ✔**
(3) खोजना
(4) प्रमुख

Q.100

निम्नलिखित गद्यांश के आधार पर प्रश्नों के उत्तर दें - विज्ञापन से होने वाले आर्थिक[1] लाभ के कारण धन लेकर समाचार प्रकाशित करने की प्रवृति [2] भी आज कल बढ़ी है। इससे पत्रकारिता के मूल्यों का ह्रास हुआ है। मीडिया को लोकतंत्र[3] का चतुर्थ स्तम्भ कहा जाता है। विज्ञापनदाताओं के अनुचित प्रभाव एवं व्यावसायिक लाभ को प्राथमिकता देने के कारण मीडिया के उद्देश्यों पर प्रतिकूल प्रभाव पड़ता है। कई बार यह भी देखने में आता है कि सरकारी विज्ञापनों के लोभ में समाचार-पत्र एवं टीवी चैनल सरकार के विरोध में कुछ प्रकाशित या प्रसारित[4] नहीं कर पाते हैं। विज्ञापन से एकाधिकार की प्रवृत्ति का सृजन होता है। माइक्रोसॉफ्ट प्रारंभ से ही यह प्रयास करती रही है कि कंप्यूटर की दुनिया में उसका एकाधिकार[5] रहे। इसके लिए वह समय-समय पर विज्ञापनों का भी सहारा लेती है।
विज्ञापनों के माध्यम से एकाधिकार की लड़ाई हमेशा माँग में वृद्धि करवाने में सहायक होती है। इस तरह विज्ञापन की दुनिया एक रोचक दुनिया है, जहाँ पैसा है, ग्लैमर है, शोहरत है एवं सफलता की ऊँचाइयाँ हैं।

रेखांकित शब्द 5 का अर्थ बताएं -

(1) कई दलों का अधिकार
(2) **एक व्यक्ति या दल का अधिकार ✔**
(3) अनेक लोगों के अधिकार
(4) जन समूह का अधिकार

Assistant Teacher (Primary) – PRT

Q.101 Ornstein and Hunkins' textbook "Foundations of Curriculum and Instruction" mainly emphasises what?

ऑर्नस्टीन और हंकिन्स की पाठ्यपुस्तक "फाउंडेशन्स ऑफ करिकुलम एंड इंस्ट्रक्शन" (Foundations of Curriculum and Instruction) मुख्य रूप से किस पर बल देती है?

(1) Complete focus on learner-centred teaching models / शिक्षार्थी-केंद्रित शिक्षण मॉडलों पर पूर्ण फोकस
(2) Preparing teachers only for standardised tests / शिक्षकों को केवल मानकीकृत परीक्षणों के लिए तैयार करना
(3) **Understanding the origins and current development of curriculum / पाठ्यक्रम की मूल और वर्तमान विकास को समझना ✔**
(4) Removing theoretical frameworks in curriculum analysis / पाठ्यक्रम विश्लेषण में सैद्धांतिक रूपरेखा को हटाना

Q.102 The distinctive cognitive achievement of the pre-operational stage is _____.

पूर्व-संक्रियात्मक अवस्था की विशिष्ट संज्ञानात्मक उपलब्धि _____ है।

(1) Mental operations / मानसिक संक्रियाएं
(2) Formal reasoning / औपचारिक तर्कना
(3) **Symbolic representation / प्रतीकात्मक निरूपण ✔**
(4) Object permanence / वस्तु स्थायित्व

Q.103 Which principle states that development in children takes place in the direction from head to the toe?

कौन-सा सिद्धांत यह बताता है कि बच्चों में विकास सिर से पैर (head to the toe) की दिशा में होता है?

(1) Proximodistal principle / प्रॉक्सिमोडिस्टल सिद्धांत (Proximodistal principle)
(2) Reciprocal principle / पारस्परिकता सिद्धांत (Reciprocal principle)
(3) Maturation principle / परिपक्वता सिद्धांत (Maturation principle)
(4) **Cephalocaudal principle / सेफलोकाडल सिद्धांत (Cephalocaudal principle) ✔**

Q.104 Which of the following options best describes the influence of the family environment on a child's personality development?

निम्नलिखित में से कौन-सा विकल्प, पारिवारिक परिवेश द्वारा बच्चे के व्यक्तित्व विकास पर होने वाले प्रभाव को सर्वोत्तम रूप से दर्शाता है?

(1) It determines the genetic make-up. / यह आनुवंशिक बनावट निर्धारित करता है।

(2) **It shapes values, beliefs and social behaviours. / यह मूल्यों, मान्यताओं और सामाजिक व्यवहारों को आकार देता है। ✔**

(3) It affects only physical growth. / यह केवल शारीरिक वृद्धि को प्रभावित करता है।

(4) It controls intelligence levels. / यह बुद्धिमत्ता स्तरों को नियंत्रित करता है।

Q.105 In the concept of positive and negative peace, how does Reardon describe negative peace?

सकारात्मक और नकारात्मक शांति की अवधारणा में, रियर्डन (Reardon) नकारात्मक शांति कोकिस प्रकार वर्णित करता है?

(1) **Absence of war or physical forms of violence / युद्ध या हिंसा के भौतिक रूपों की अनुपस्थिति ✔**

(2) A situation where economic equality is fully achieved / एक ऐसी स्थिति जहाँ आर्थिक समानता पूर्ण रूप से प्राप्त हो जाती है

(3) Presence of cooperation among cultural groups / सांस्कृतिक समूहों के बीच सहयोग की उपस्थिति

(4) The process of building supportive social institutions / सहायक सामाजिक संस्थाओं के निर्माण की प्रक्रिया

Q.106 In planning physical activities for young children, why is it important to include both gross and fine motor tasks?

छोटे बच्चों के लिए शारीरिक गतिविधियों की योजना बनाते समय स्थूल और सूक्ष्म दोनों प्रकार के गामक (मोटर) कार्यों को शामिल करना क्यों महत्वपूर्ण है?

(1) To improve balance and coordination only / केवल संतुलन और समन्वय में सुधार के लिए

(2) **To support overall physical development / समग्र शारीरिक विकास में सहायता के लिए ✔**

(3) To enhance communication and language skills / संप्रेषण और भाषा कौशल को बढ़ाने के लिए

(4) To boost emotional and social growth / भावनात्मक और सामाजिक विकास को बढ़ावा देने के लिए

Q.107 Who chaired the University Education Commission of 1948-49 in India?

भारत में वर्ष 1948-49 के विश्वविद्यालय शिक्षा आयोग की अध्यक्षता किसने की?

(1) Dr. B.R. Ambedkar / डॉ. बी.आर. अम्बेडकर

(2) Jawaharlal Nehru / जवाहरलाल नेहरू

(3) Mahatma Gandhi / महात्मा गांधी

(4) **Dr. S. Radhakrishnan / डॉ. एस. राधाकृष्णन ✔**

Q.108 What kind of outcomes are generally obtained by introducing peace education programmes in schools?

विद्यालयों में शांति शिक्षा कार्यक्रम शुरू करने से सामान्यतः किस प्रकार के परिणाम प्राप्त होते हैं?

(1) Increase in discriminatory attitudes and exclusion / भेदभावपूर्ण रवैये और अपवर्जन में वृद्धि

(2) Decrease in mutual cooperation among students / विद्यार्थियों के बीच आपसी सहयोग में कमी

(3) Increase in violence and frequent fights in the classroom / हिंसा में वृद्धि और कक्षा में बार-बार होने वाले झगड़े

(4) **Decrease in incidents of bullying and improvement in relationships among students / धमकाने/ बदमाशी की घटनाओं में कमी और विद्यार्थियों के बीच संबंधों में सुधार ✔**

Q.109 Which of the following characteristics mainly distinguishes social class from caste?

निम्नलिखित में से कौन-सा अभिलक्षण, मुख्य रूप से सामाजिक वर्ग को जाति से अलग करता है?

(1) Class is religious, whereas caste is economic. / वर्ग धार्मिक होता है, जबकि जाति आर्थिक होती है।

(2) Caste is always urban, whereas class is rural. / जाति हमेशा शहरी होती है, जबकि वर्ग ग्रामीण होता है।

(3) Social class is based on similar socio-economic status. / सामाजिक वर्ग समान सामाजिक-आर्थिक स्थिति पर आधारित होता है। ✔

(4) Caste is voluntary, whereas class is hereditary. / जाति स्वैच्छिक होती है, जबकि वर्ग वंशानुगत होता है।

Q.110 The Secondary Education Commission (1952-53), popularly known as the Mudaliar Commission, critically analysed the role of examinations in shaping teaching-learning practices at the secondary level. Which reform did the Commission strongly advocate to overcome the limitations of examination-oriented school education?

माध्यमिक शिक्षा आयोग (1952-53), जिसे लोकप्रिय रूप से मुदलियार आयोग के नाम से जाना जाता है, ने माध्यमिक स्तर पर शिक्षण-अधिगम पद्धतियों को आकार देने में परीक्षाओं की भूमिका का समीक्षात्मक विश्लेषण किया। परीक्षा-उन्मुख विद्यालयी शिक्षा की सीमाओं को दूर करने के लिए आयोग ने किस सुधार का दृढ़ता पूर्वक पक्ष समर्थन किया?

(1) Abolishing practical and internal assessments to ensure uniformity in evaluation / मूल्यांकन में एकरूपता सुनिश्चित करने के लिए व्यावहारिक और आंतरिक आकलनों को समाप्त करना

(2) Increasing the dominance of public final examinations to standardise academic performance / अकादमिक प्रदर्शन को मानकीकृत करने के लिए सार्वजनिक अंतिम परीक्षाओं के प्रभुत्व को बढ़ाना

(3) Using continuous and varied assessment instead of only final examinations / केवल अंतिम परीक्षाओं के बजाय सतत और विविध आकलन का उपयोग करना ✔

(4) Introducing annual high-stakes examinations at every stage of secondary school education. / माध्यमिक विद्यालयी शिक्षा के प्रत्येक चरण में वार्षिक उच्च-स्तरीय परीक्षाओं की शुरुआत करना।

Q.111 According to the Preamble, which word indicates that the head of the Indian State is elected and not hereditary?

प्रस्तावना के अनुसार, कौन-सा शब्द यह दर्शाता है कि भारतीय राज्य का प्रमुख निर्वाचित होता है न कि वंशानुगत?

(1) Secular / पंथनिरपेक्ष

(2) Republic / गणराज्य ✔

(3) Democratic / लोकतांत्रिक

(4) Socialist / समाजवादी

Q.112 The close emotional bond of affection that develops between infants and their caregivers is called:

शिशुओं और उनकी देखभाल करने वालों के बीच विकसित होने वाला स्नेह का घनिष्ठ भावनात्मक बंधन क्या कहलाता है?

(1) Socialisation of infant in family / परिवार में शिशु का समाजीकरण

(2) Bonding of child with relatives / संबंधियों के साथ बच्चे का जुड़ाव

(3) Attachment between child and caregiver / बच्चे और देखभाल करने वाले के बीच लगाव ✔

(4) Emotional trust between infant and parent / शिशु और माता-पिता के बीच भावनात्मक विश्वास

Q.113 By which Constitutional Amendment was the right to education made a Fundamental Right in India?

भारत में शिक्षा का अधिकार किस संवैधानिक संशोधन द्वारा मौलिक अधिकार बनाया गया?

(1) 86th Amendment / 86वां संशोधन ✔

(2) 91st Amendment / 91वां संशोधन

(3) 73rd Amendment / 73वां संशोधन

(4) 42nd Amendment / 42वां संशोधन

Q.114 Social acceptance affects personality development mainly by shaping an individual:
सामाजिक स्वीकृति मुख्य रूप से व्यक्ति के किस पक्ष को आकार देकर व्यक्तित्व विकास को प्रभावित करती है?

(1) Self-concept / आत्म-संप्रत्यय ✔
(2) Physical health / शारीरिक स्वास्थ्य
(3) Temperamental style / स्वभावगत शैली
(4) Intellectual level / बौद्धिक स्तर

Q.115 A school includes work experience and practical activities in secondary classes. Which recommendation does it follow?
एक विद्यालय माध्यमिक कक्षाओं में कार्य अनुभव और प्रायोगिक क्रियाकलापों को शामिल करता है। यह किस अनुशंसा का अनुसरण करता है?

(1) Mudaliar Commission / मुदालियर आयोग ✔
(2) Radhakrishnan Commission / राधाकृष्णन आयोग
(3) National Literacy Mission / राष्ट्रीय साक्षरता मिशन
(4) NEP 2020

Q.116 What is an example of a biological factor affecting personality development?
व्यक्तित्व विकास को प्रभावित करने वाले जैविक कारक का एक उदाहरण क्या है?

(1) Socioeconomic status / सामाजिक-आर्थिक स्थिति
(2) Genetic inheritance / आनुवंशिक वंशागति ✔
(3) Education / शिक्षा
(4) Culture / संस्कृति

Q.117 Which principle explains why a child first learns to sit before walking?
कौन-सा सिद्धांत स्पष्ट करता है कि बच्चा चलने से पहले बैठना क्यों सीखता है?

(1) Development depends on experience / विकास अनुभव पर निर्भर करता है
(2) Development occurs continuously / विकास निरंतर होता है
(3) Development varies across individuals / विकास व्यक्तियों में भिन्न-भिन्न होता है
(4) Development is sequential and orderly / विकास क्रमिक और व्यवस्थित होता है ✔

Q.118 Through continuous curriculum reforms, which social characteristic should education reflect?
सतत पाठ्यचर्या सुधारों के माध्यम से शिक्षा को किस सामाजिक विशेषता को प्रतिबिंबित करना चाहिए?

(1) Maintaining cultural heritage / सांस्कृतिक विरासत को बनाए रखना
(2) Adapting to changing conditions / परिवर्ती स्थितियों के अनुकूल होना ✔
(3) Permanent democratic philosophy / स्थायी लोकतांत्रिक दर्शन
(4) Standardising core content / मुख्य अंतर्विषय को मानकीकृत करना

Q.119 How does the multilingual and multi-religious structure of India most affect its society?
भारत की बहुभाषी और बहुधार्मिक संरचना उसके समाज को सबसे अधिक किस प्रकार प्रभावित करती है?

(1) It creates a single cultural identity for all citizens. / यह सभी नागरिकों के लिए एकल सांस्कृतिक पहचान बनाती है।
(2) It promotes both cultural diversity and complex social interactions. / यह सांस्कृतिक विविधता और जटिल सामाजिक अंतःक्रियाओं दोनों को बढ़ावा देती है। ✔
(3) It eliminates social hierarchy from communities. / यह समुदायों से सामाजिक पदानुक्रम को समाप्त करती है।
(4) It reduces the role of caste in society. / इससे समाज में जाति की भूमिका कम हो जाती है।

Q.120 Based on the national aspiration of universalism, which key qualities does education need to develop for global citizens?

सार्वभौमिकता की राष्ट्रीय आकांक्षा के आधार पर, वैश्विक नागरिकों के लिए शिक्षा को कौन-सा मुख्य गुण विकसित करने की आवश्यकता है?

(1) Cooperation, tolerance, mutual trust / सहकारिता, सहिष्णुता, पारस्परिक विश्वास ✔

(2) Strict compliance with legal orders / विधिक आदेश का सख्ती से अनुपालन

(3) Competitive economic performance / प्रतिस्पर्धात्मक आर्थिक प्रदर्शन

(4) Economic self-reliance goals / आर्थिक आत्मनिर्भरता लक्ष्य

Q.121 When a student measures the length and breadth of the classroom in metres and multiplies them to find the area of the floor, which mathematical concept is being used here?

जब कोई विद्यार्थी कक्षा की लंबाई और चौड़ाई को मीटर में मापता है और फर्श का क्षेत्रफल ज्ञात करने के लिए उन्हें गुणा करता है, तो यहां किस गणितीय अवधारणा का प्रयोग किया जा रहा है?

(1) Ignoring the importance of area / क्षेत्रफल के महत्व की उपेक्षा करना

(2) Using volume instead of area / क्षेत्रफल के स्थान पर आयतन का उपयोग करना

(3) Using standard units for calculating area / क्षेत्रफल की गणना के लिए मानक इकाइयों का उपयोग करना ✔

(4) Measuring randomly without units / बिना इकाइयों के यादृच्छिक रूप से मापना

Q.122 A regional educational board wants to adapt the curriculum for rural schools with unique cultural backgrounds. Which criterion from the context should guide their curriculum modification?

एक क्षेत्रीय शिक्षा बोर्ड विशिष्ट सांस्कृतिक पृष्ठभूमि वाले ग्रामीण विद्यालयों के लिए पाठ्यक्रम को अनुकूलित करना चाहता है। संदर्भ से संबंधित कौन-सा मानदंड उनके पाठ्यक्रम संशोधन का मार्गदर्शन करना चाहिए?

(1) Equity and excellence in assessment procedures / मूल्यांकन प्रक्रियाओं में समता और उत्कृष्टता

(2) Geographical relevance ensuring contextual adaptation / संदर्भगत अनुकूलन सुनिश्चित करने वाली भौगोलिक प्रासंगिकता ✔

(3) Emphasis on secondary-level subject depth / माध्यमिक स्तर पर विषय की गहराई पर बल

(4) Alignment with international trends in education / शिक्षा में अंतरराष्ट्रीय प्रवृत्तियों के साथ संरेखण

Q.123 How does self-esteem develop in individuals?

व्यक्तियों में आत्मसम्मान का विकास किस प्रकार से होता है?

(1) It depends entirely on meeting academic or social standards. / यह पूरी तरह से शैक्षणिक या सामाजिक मानकों को पूरा करने पर निर्भर करता है।

(2) It develops only from personal achievements without the influence of others. / यह दूसरों के प्रभाव के बिना केवल व्यक्तिगत उपलब्धियों से विकसित होता है।

(3) It is always negative if social expectations are not met. / यदि सामाजिक अपेक्षाओं को पूरा नहीं किया जाता है तो यह सदैव नकारात्मक होता है।

(4) It increases when one sees oneself as competent and unconditionally accepted. / इसमें तब वृद्धि होती है जब कोई स्वयं को सक्षम और अप्रतिबंधत: स्वीकृत के रूप में देखता है। ✔

Q.124 Which classroom method is most suitable for developing cooperation and group consciousness among students?

विद्यार्थियों में सहयोग और समूह चेतना (group consciousness) विकसित करने के लिए कौन- सी कक्षागत विधि सबसे उपयुक्त है?

(1) Silent reading sessions / मौन पठन सत्र

(2) Unstructured free time / असंरचित अनुमत समय

(3) Individual assignments / एकल दत्तकार्य

(4) Collaborative project work / सहयोग युक्त परियोजना कार्य ✔

Q.125 An educational institution wants to reflect the approach of an icon of social justice in its curriculum. Which of the following changes would be most consistent with this vision?

एक शैक्षणिक संस्थान अपनी पाठ्यचर्या में सामाजिक न्याय के प्रति आदर्श व्यक्तित्व (icon) के उपागम को प्रतिबिंबित करना चाहता है। निम्नलिखित में से कौन-सा परिवर्तन इस दृष्टि के सबसे अधिक अनुरूप होगा?

(1) Avoiding controversial social issues in classroom teaching / कक्षागत शिक्षण में विवादास्पद सामाजिक मुद्दों से बचना

(2) Reserving social justice topics only for extracurricular clubs / सामाजिक न्याय के विषयों को केवल पाठ्यचर्येतर क्लबों के लिए आरक्षित रखना

(3) Embedding discussions on caste, gender and equality within all subjects / सभी विषयों के भीतर जाति, जेंडर और समानता पर चर्चा को अंतःस्थापित करना ✔

(4) Including social justice only in higher classes / सामाजिक न्याय को केवल उच्च कक्षाओं में शामिल करना

Q.126 Which domain requires mastery for Gandhi's "Be the change you want to see in the world"?

गांधी जी के कथन "वह परिवर्तन स्वयं बनिए जो आप संसार में देखना चाहते हैं" के लिए किस क्षेत्र पर महारत आवश्यक है?

(1) External societal expectations / बाहरी सामाजिक अपेक्षाएँ

(2) Personal identity diffusion / व्यक्तिगत पहचान का विसरण

(3) Group identification mechanisms / समूह तादात्म्य की क्रियाविधियाँ

(4) Internal emotional landscape / आंतरिक भावनात्मक परिदृश्य ✔

Q.127 Which of the following best describes the concept of experiential learning in classrooms?

निम्नलिखित में से कौन-सा, कक्षाओं में अनुभवात्मक अधिगम की अवधारणा का सर्वोत्तम वर्णन करता है?

(1) Experiential learning is solving quizzes without discussion. / अनुभवात्मक अधिगम बिना चर्चा के प्रश्नोत्तरी को हल करना है।

(2) Experiential learning is only recalling facts from textbooks. / अनुभवात्मक अधिगम केवल पाठ्यपुस्तकों से तथ्यों का स्मरण करना है।

(3) Experiential learning is passively listening to teachers' lectures. / अनुभवात्मक अधिगम शिक्षकों के व्याख्यानों का निष्क्रिय रूप से श्रवण करना है।

(4) It involves students in direct experiences and reflection. / यह विद्यार्थियों को प्रत्यक्ष अनुभवों और अनुचिंतन में शामिल करती है। ✔

Q.128 To address regional variations in language and poverty, the national curriculum framework provides guidelines, while states adapt the content according to their local context. Which curriculum development approach does this reflect?

भाषा और गरीबी में क्षेत्रीय भिन्नताओं को दूर करने के लिए, राष्ट्रीय पाठ्यचर्या ढांचा दिशानिर्देश प्रदान करता है, जबकि राज्य अपने स्थानीय संदर्भ के अनुसार सामग्री को अनुकूलित करते हैं। यह किस पाठ्यचर्या विकास उपागम को दर्शाता है?

(1) Integrated approach with local subjects / स्थानीय विषयों के साथ एकीकृत उपागम

(2) Top-Down approach with regional adaptation / क्षेत्रीय अनुकूलन के साथ अधोमुखी (Top-Down) उपागम ✔

(3) Bottom-Up approach with national oversight / राष्ट्रीय निरीक्षण के साथ उर्ध्वमुखी (Bottom-Up) उपागम

(4) Competency-based approach with uniform content / समान विषय-वस्तु के साथ सक्षमता-आधारित उपागम

Q.129 While preparing students for a school exhibition, a teacher organises role-play activities where learners have to negotiate, make decisions and express their needs. Which function of language is directly supported by this approach?

विद्यालय प्रदर्शनी के लिए विद्यार्थियों को तैयार करते समय, एक शिक्षक भूमिका-निर्वाह क्रियाकलापों का आयोजन करता है जहां शिक्षार्थियों को बातचीत करनी होती है, निर्णय लेने होते हैं और अपनी आवश्यकताओं को व्यक्त करना होता है। इस उपागम से भाषा के किस कार्य को प्रत्यक्ष रूप से सहायता मिलती है?

(1) Imposing cultural values through direct teaching / प्रत्यक्ष शिक्षण के माध्यम से सांस्कृतिक मूल्यों को लागू करना

(2) **Developing life skills such as negotiation and decision-making / बातचीत और निर्णयन जैसे जीवन कौशल विकसित करना ✔**

(3) Establishing classroom discipline through instructions / अनुदेशों के माध्यम से कक्षा में अनुशासन स्थापित करना

(4) Limiting the use of language to reading assignments / असाइनमेंट पढ़ने के लिए भाषा के उपयोग को सीमित करना

Q.130 Which approach best characterises the role of literature in language learning in classroom practices?

कक्षागत अभ्यासों में भाषा अधिगम में साहित्य की भूमिका को कौन-सा उपागम सर्वोत्तम रूप से अभिलक्षित करता है?

(1) Focusing only on grammar practice to improve fluency. / प्रवाह में सुधार के लिए केवल व्याकरण अभ्यास पर ध्यान केंद्रित करना।

(2) **Using stories/poems to develop critical thinking skills. / समीक्षात्मक चिंतन कौशल विकसित करने के लिए कहानियों/कविताओं का उपयोग करना। ✔**

(3) Relying on memorising literary vocabulary. / साहित्यिक शब्दावली को कंठस्थ करने पर निर्भर रहना।

(4) Skipping literature to prioritise factual information. / तथ्यात्मक जानकारी को प्राथमिकता देने के लिए साहित्य को छोड़ना।

Q.131 Which of the following is the etymological origin of the word 'pedagogy'?

निम्नलिखित में से कौन-सा, शब्द 'पेडागॉगी (pedagogy)' की व्युत्पत्ति-मूलक उत्पत्ति है?

(1) French word 'éducation' / फ्रांसीसी शब्द 'éducation'

(2) **Greek word 'paidagōgeō' / ग्रीक शब्द 'paidagōgeō' ✔**

(3) Latin word 'educatio' / लैटिन शब्द 'educatio'

(4) German word 'Bildung' / जर्मन शब्द 'Bildung'

Q.132 During a group project, a team initially struggles with conflict and resistance as members debate their individual roles and responsibilities. Over time, the group develops shared norms and cohesion, leading to effective collaboration and goal achievement. According to group development models, which sequence accurately describes this group's behavioral progression?

एक समूह परियोजना के दौरान, एक टीम आरंभ में संघर्ष और प्रतिरोध से जूझती है क्योंकि सदस्य अपनी व्यक्तिगत भूमिकाओं और ज़िम्मेदारियों पर बहस करते हैं। समय के साथ, समूह साझा मानदंड और सामंजस्य विकसित करता है, जिससे प्रभावी सहयोग और लक्ष्य की प्राप्ति होती है। समूह विकास मॉडलों के अनुसार, कौन-सा क्रम इस समूह की व्यवहारगत प्रगति का सटीक वर्णन करता है?

(1) Norming, Forming, Performing, Storming / नॉर्मिंग, फॉर्मिंग, परफॉर्मिंग, स्टॉर्मिंग

(2) Storming, Forming, Performing, Norming / स्टॉर्मिंग, फॉर्मिंग, परफॉर्मिंग, नॉर्मिंग

(3) **Forming, Storming, Norming, Performing / फॉर्मिंग, स्टॉर्मिंग, नॉर्मिंग, परफॉर्मिंग ✔**

(4) Forming, Norming, Storming, Performing / फॉर्मिंग, नॉर्मिंग, स्टॉर्मिंग, परफॉर्मिंग

Q.133 Observation as an assessment source is particularly useful for assessing _____.

आकलन स्रोत (assessment source) के रूप में प्रेक्षण, _____ के आकलन के लिए विशेष रूप से उपयोगी है।

(1) classroom behaviour / कक्षा व्यवहार ✔

(2) recall of textbook content / पाठ्यपुस्तक की विषयवस्तु को स्मरण करने

(3) accuracy of objective answers / वस्तुनिष्ठ उत्तरों की सटीकता

(4) speed of written response / लिखित अनुक्रिया की गति

Q.134 While collaborating in a group, what is a common behavioural practice that promotes effective teamwork?

समूह में सहयोग करते समय, प्रभावी टीम वर्क (teamwork) को बढ़ावा देने वाली एक सामान्य व्यवहारिक प्रथा क्या है?

(1) Competing for control and creating interpersonal conflict / नियंत्रण के लिए प्रतिस्पर्धा करना और पारस्परिक संघर्ष उत्पन्न करना

(2) Dominating discussions and dismissing differing opinions / चर्चाओं पर हावी होना और भिन्न मतों को खारिज करना

(3) Withdrawing from engagement and avoiding participation in the team / संलग्नता से पीछे हटना और टीम में सहभागिता से बचना

(4) Sharing ideas openly and listening carefully to fellow members / विचारों को खुलकर साझा करना और साथी सदस्यों को ध्यान से सुनना ✔

Q.135 Which of the following classroom strategies best reflects experiential learning?

निम्नलिखित में से कौन-सी कक्षा रणनीति, अनुभवात्मक अधिगम को सर्वोत्तम रूप से दर्शाती है?

(1) Students memorise procedures and reproduce them in written examinations / विद्यार्थी प्रक्रियाओं का स्मरण करते हैं और लिखित परीक्षाओं में उन्हें पुनः प्रस्तुत करते हैं

(2) Students design and conduct a small investigation, then deliberate on the results / विद्यार्थी एक छोटा सा अन्वेषण तैयार करते हैं और उसे संचालित करते हैं, फिर परिणामों पर सविमर्श करते हैं ✔

(3) Teachers explain concepts through detailed lectures and demonstrations / शिक्षक विस्तृत व्याख्यानों और प्रदर्शनों के माध्यम से अवधारणाओं की व्याख्या करते हैं

(4) Teachers give textbook questions and then follow up for submission of written summaries / शिक्षक पाठ्यपुस्तक के प्रश्न देते हैं और फिर लिखित सारांश प्रस्तुत करने के लिए अनुसरण करते हैं

Q.136 According to Chomsky's theory, what is the role of the Language Acquisition Device (LAD)?

चॉम्स्की के सिद्धांत के अनुसार, भाषा अधिग्रहण उपकरण (LAD) की क्या भूमिका होती है?

(1) It provides an innate system that enables learners to form hypotheses about language rules. / यह एक अन्तर्जात प्रणाली प्रदान करता है जो शिक्षार्थियों को भाषा नियमों के बारे में परिकल्पना बनाने में सक्षम बनाता है। ✔

(2) It ensures that language learning takes place only through formal instruction. / यह सुनिश्चित करता है कि भाषा अधिगम केवल औपचारिक अनुदेशों के माध्यम से हो।

(3) It helps learners imitate adult speech accurately. / यह शिक्षार्थियों को वयस्क भाषण को सटीक रूप से अनुकरण करने में मदद करता है।

(4) It stores all the vocabulary and grammar rules that a child needs. / यह उन सभी शब्दावली और व्याकरण नियमों को संग्रहीत करता है जिनकी एक बच्चे को आवश्यकता होती है।

Q.137 Which major benefit is associated with peer tutoring programmes?

कौन-सा प्रमुख लाभ, सहपाठी अनुशिक्षण कार्यक्रमों से संबंधित है?

(1) Increasing passive behaviour of students / विद्यार्थी के निष्क्रिय व्यवहार में वृद्धि करना

(2) Limiting peer interaction and communication / सहपाठी अंतःक्रिया और संचार को सीमित करना

(3) Completely replacing teacher-led lessons / शिक्षक-नेतृत्व वाले पाठों को पूरी तरह से प्रतिस्थापित करना

(4) Improving academic achievement and social skills / शैक्षिक उपलब्धि और सामाजिक कौशल में सुधार करना ✔

Q.138 A key feature of multilingualism is that language proficiency _____ .

बहुभाषावाद की एक प्रमुख विशेषता यह है कि भाषा प्रवीणता _____ ।

(1) is independent of social use / सामाजिक उपयोग से स्वतंत्र होती है

(2) remains constant throughout life / जीवन भर स्थिर रहती है

(3) is uniform across all languages / सभी भाषाओं में एकसमान होती है

(4) is unequal and context-dependent / असमान और संदर्भ-निर्भर होती है ✔

Q.139 What is the main purpose of a lesson plan for a teacher?

शिक्षक के लिए पाठ-योजना का मुख्य उद्देश्य क्या होता है?

(1) Only giving homework / केवल गृहकार्य देना

(2) Decorating the classroom / कक्षा को सजाना

(3) Recording students' grades / विद्यार्थियों के ग्रेड दर्ज करना

(4) Helping to achieve teaching objectives / शिक्षण उद्देश्यों को प्राप्त करने में सहायता करना ✔

Q.140 Which of the following options best describes language acquisition in children?

निम्नलिखित में से कौन-सा विकल्प, बच्चों में भाषा अधिग्रहण का सर्वोत्तम वर्णन करता है?

(1) Children naturally acquire their native language without formal lessons. / बच्चे बिना औपचारिक पाठों के स्वाभाविक रूप से अपनी मूल भाषा अधिग्रहित करते हैं। ✔

(2) Language acquisition is possible only through direct instruction from parents. / भाषा अधिग्रहण केवल माता-पिता के प्रत्यक्ष अनुदेशन से ही संभव है।

(3) Children begin language learning only after entering formal schooling. / बच्चे औपचारिक स्कूली शिक्षा में प्रवेश करने के बाद ही भाषा अधिगम शुरू करते हैं।

(4) Children require formal classroom lessons for language acquisition. / भाषा अधिग्रहण के लिए बच्चों को औपचारिक कक्षा पाठों की आवश्यकता होती है।

Q.141 A Grade 2 teacher initiates a lesson on volume by having students estimate the capacity of various jugs by filling them with cups of water. This activity is primarily designed to facilitate which mode of cognitive representation, as proposed by Bruner?

कक्षा 2 का एक शिक्षक आयतन पर एक पाठ की शुरुआत विद्यार्थियों से विभिन्न जगों को कपों से पानी भरकर उनकी धारिता का अनुमान लगवाकर करता है। यह गतिविधि मुख्य रूप से ब्रूनर द्वारा प्रस्तावित संज्ञानात्मक प्रतिनिधित्व की किस विधा को सुगम बनाने के लिए बनाई गई है?

(1) Abstract language application / अमूर्त भाषा का अनुप्रयोग

(2) Iconic imagery development / प्रतिमात्मक (आइकॉनिक) बिंब विकास

(3) Enactive learning strategy / क्रियात्मक (एनैक्टिव) अधिगम रणनीति ✔

(4) Symbolic manipulation phase / प्रतीकात्मक हेरफेर चरण

Q.142 What does 'appropriateness' in writing primarily refer to?

लेखन में 'उपयुक्तता' (appropriateness) से मुख्य रूप से क्या अभिप्राय है?

(1) Using the right words in the right context / सही संदर्भ में सही शब्दों का प्रयोग करना ✔

(2) Writing grammatically correct sentences only / केवल व्याकरणिक रूप से शुद्ध वाक्य लिखना

(3) Using complex vocabulary / जटिल शब्दावली का प्रयोग करना

(4) Writing lengthy sentences / लंबे वाक्य लिखना

Q.143 The idea of whether a language use is considered "right" or "wrong" is generally:

किसी भाषा प्रयोग को "सही" या "गलत" माना जाए, यह विचार सामान्यतः होता है:

(1) Fixed and universally applicable / स्थिर और सार्वभौमिक रूप से लागू

(2) Determined by social and contextual norms / सामाजिक और संदर्भगत मानदंडों द्वारा निर्धारित ✔

(3) Independent of usage and context / प्रयोग और संदर्भ से स्वतंत्र

(4) Completely defined by grammar books / पूर्णतः व्याकरण की पुस्तकों द्वारा परिभाषित

Q.144 How does the moral role of teachers differ from the moral role of other professionals?

शिक्षकों की नैतिक भूमिका अन्य पेशेवरों की नैतिक भूमिका से किस प्रकार भिन्न होती है?

(1) Teachers have to enforce morality through their authority / शिक्षकों को अपने अधिकार के माध्यम से नैतिकता को प्रवर्तित करना होता है

(2) Teachers have to make decisions without any justification / शिक्षकों को बिना किसी औचित्य के निर्णय लेने होते हैं

(3) Teachers have to avoid moral decisions in classrooms / शिक्षकों को कक्षाओं में नैतिक निर्णयों से बचना होता है

(4) Teachers have to publicly justify moral decisions / शिक्षकों को सार्वजनिक रूप से नैतिक निर्णयों का औचित्य सिद्ध करना होता है ✔

Q.145 In a classroom, a teacher repeatedly pairs a particular sound with handing out homework. Over time, students react to the sound with disappointment even before homework is given. Which learning theory best explains this scenario?

एक कक्षा में, शिक्षक बार-बार एक विशेष ध्वनि को गृहकार्य देने के साथ जोड़ता है। समय के साथ, गृहकार्य दिए जाने से पहले ही विद्यार्थी उस ध्वनि पर निराशा के साथ प्रतिक्रिया करने लगते हैं। कौन-सा अधिगम सिद्धांत इस स्थिति की सबसे अच्छी व्याख्या करता है?

(1) Trial and Error / प्रयास और त्रुटि

(2) Operant Conditioning / क्रियाप्रसूत अनुबंधन

(3) Observational Learning / अवलोकनात्मक अधिगम

(4) Classical Conditioning / शास्त्रीय अनुबंधन ✔

Q.146 What can be the possible long-term effect on children of repeated exposure to television advertisements?

टेलीविजन विज्ञापनों के बार-बार संपर्क में आने से बच्चों पर संभावित दीर्घकालिक प्रभाव क्या हो सकता है?

(1) Children start getting less influenced by their peers. / बच्चे अपने सहपाठियों से कम प्रभावित होने लगते हैं।

(2) Children may refuse to watch any television. / बच्चे कोई भी टेलीविजन देखने से इनकार कर सकते हैं।

(3) Children always prefer only home-made products. / बच्चे सदैव घर के बने उत्पादों को ही पसंद करते हैं।

(4) Children may internalise materialistic values. / बच्चे भौतिकवादी मूल्यों को आत्मसात कर सकते हैं। ✔

Q.147 After being scolded at school, an upset child comes home and starts shouting at his younger sibling. This is an example of what?

स्कूल में डांट खाने के बाद परेशान बच्चा घर आकर अपने छोटे भाई-बहन पर चिल्लाने लगता है। यह किसका उदाहरण है?

(1) Projection / प्रक्षेपण (Projection)

(2) Displacement / विस्थापन (Displacement) ✔

(3) Repression / दमन (Repression)

(4) Reaction formation / प्रतिक्रिया-निर्मिति (Reaction formation)

Q.148 Which teacher behaviors make students more attentive and develop a positive attitude toward learning?

शिक्षक के कौन-से व्यवहार विद्यार्थियों को अधिक चौकस बनाते हैं और अधिगम के प्रति सकारात्मक दृष्टिकोण विकसित करते हैं?

(1) Warmth and enthusiasm / आत्मीयता और उत्साह ✓

(2) Strict disciplinary rules / कठोर अनुशासनात्मक नियम

(3) Frequent and random testing / बार-बार और यादृच्छिक परीक्षण

(4) Excessive and difficult homework / अत्यधिक और कठिन गृहकार्य

Q.149 A school administrator observes that as soon as the dismissal bell rings, students automatically start getting ready to leave, even if the teacher continues the lesson. Which process is mainly responsible for this behaviour?

एक विद्यालय प्रशासक देखता है कि जैसे ही छुट्टी की घंटी बजती है, विद्यार्थी स्वतः ही जाने की तैयारी करने लगते हैं, भले ही शिक्षक अपना पाठ जारी रखे। इस व्यवहार के लिए कौन-सी प्रक्रिया मुख्य रूप से उत्तरदायी है?

(1) Cognitive Mapping / संज्ञानात्मक मानचित्रण (Cognitive Mapping)

(2) Trial and Error Learning / प्रयत्न-त्रुटि अधिगम (Trial and Error Learning)

(3) Operant Conditioning / क्रियाप्रसूत अनुकूलन (Operant Conditioning)

(4) Classical Conditioning / क्लासिकी अनुकूलन (Classical Conditioning) ✓

Q.150 What is the primary responsibility of a school administrator while leading the school?

विद्यालय का नेतृत्व करते समय विद्यालय प्रशासक का प्राथमिक उत्तरदायित्व क्या होता है?

(1) Making lesson plans for teachers / शिक्षकों के लिए पाठ योजनाएं बनाना

(2) Ensuring that school policies are implemented effectively / यह सुनिश्चित करना कि विद्यालय की नीतियों को प्रभावी रूप से लागू किया जाए ✓

(3) Grading students' assignments / विद्यार्थियों के असाइनमेंट का श्रेणीकरण करना

(4) Organising community functions / सामुदायिक समारोह का आयोजन करना

Q.151 A teacher noticed that some students are afraid of participating in the mathematics class. To solve this problem, which objective should the teacher focus on?

एक शिक्षक ने नोटिस किया कि कुछ विद्यार्थी गणित की कक्षा में सहभागिता से डरते हैं। इस समस्या के समाधान के लिए शिक्षक को किस उद्देश्य पर फोकस करना चाहिए?

(1) Increasing students' self-confidence / विद्यार्थियों के आत्मविश्वास को बढ़ाने ✓

(2) Focusing only on tests / केवल परीक्षणों पर फोकस करने

(3) Assigning extra homework / अतिरिक्त गृहकार्य असाइन करने

(4) Ignoring the problem / समस्या को अनदेखा करने

Q.152 Which sentence shows correct subject-verb agreement?

कौन-सा वाक्य कर्ता-क्रिया की सही अन्विति (subject-verb agreement) दर्शाता है?

(1) The teachers explains the lesson clearly to all the students.

(2) The teacher explain the lesson clearly to all the students.

(3) The teachers explaining the lesson clearly to all the students.

(4) The teacher explains the lesson clearly to all the students. ✓

Q.153 What is the main function of administrative leadership in schools?
विद्यालयों में प्रशासनिक नेतृत्व का मुख्य कार्य क्या है?

(1) Policy implementation / नीति कार्यान्वयन ✔
(2) Staff recruitment / कर्मचारी भर्ती
(3) Classroom teaching / कक्षा शिक्षण
(4) Curriculum design / पाठ्यचर्या अभिकल्प

Q.154 During a parent-teacher meeting, a mother says that her daughter cannot attend extra classes because of household chores, while her son takes part in outdoor sports. Which broader social issue is reflected in this scenario?
अभिभावक-शिक्षक बैठक के दौरान, एक माँ बताती है कि घरेलू कार्यों के कारण उसकी बेटी अतिरिक्त कक्षाओं में नहीं जा सकती, जबकि उसका बेटा बाहरी खेलों में भाग लेता है। इस परिदृश्य में कौन-सा व्यापक सामाजिक मुद्दा परिलक्षित होता है?

(1) Access to sports facilities / खेल सुविधाओं तक पहुंच
(2) Preference for private schooling / निजी स्कूली शिक्षा को प्राथमिकता
(3) Gendered division of unpaid and paid labour / अवैतनिक और सवैतनिक श्रम का लैंगिक विभाजन ✔
(4) Excessive emphasis on academic subjects / अकादमिक विषयों पर अत्यधिक बल

Q.155 What is a key reason that the needs for learning English are not uniform among learners in India?
भारत में शिक्षार्थियों के बीच अंग्रेज़ी सीखने की आवश्यकताएँ एकसमान न होने का एक प्रमुख कारण क्या है?

(1) Society is vast and heterogeneous / समाज विशाल और विषमरूपी है ✔
(2) Teachers use the same textbook everywhere / शिक्षक हर जगह एक ही पाठ्यपुस्तक का उपयोग करते हैं
(3) English is the only language spoken / अंग्रेज़ी ही एकमात्र बोली जाने वाली भाषा है
(4) All students have the same background / सभी विद्यार्थियों की पृष्ठभूमि एक समान है

Q.156 According to Piaget, mathematical knowledge is primarily acquired through:
पियाजे के अनुसार, गणितीय ज्ञान मुख्य रूप से किसके माध्यम से अर्जित किया जाता है?

(1) Verbal transmission by the teacher / शिक्षक द्वारा मौखिक संप्रेषण
(2) Active interaction with the environment / पर्यावरण के साथ सक्रिय अंतःक्रिया ✔
(3) Imitation of demonstrated procedures / प्रदर्शित प्रक्रियाओं का अनुकरण
(4) Reinforcement of correct responses / सही अनुक्रियाओं का पुनर्बलन

Q.157 Read the Assertion (A) and Reason (R) given below and select the correct option.
Assertion (A): According to Piaget, egocentric thinking is often found in children in the pre-operational stage.
Reason (R): Egocentric thinking means that the child is unable to understand situations from the point of view of others.
नीचे दिए गए अभिकथन (A) और कारण (R) को पढ़िए और सही विकल्प का चयन कीजिए।
अभिकथन (A): पियाजे के अनुसार, पूर्व-संक्रियात्मक अवस्था में बच्चों में प्रायः अहंकेंद्रित चिंतन पाया जाता है।
कारण (R): अहंकेंद्रित चिंतन से तात्पर्य है कि बच्चा स्थितियों को अन्यों के दृष्टिकोण से समझने में असमर्थ है।

(1) Assertion is true, Reason is false / अभिकथन सही है, कारण गलत है
(2) Assertion is false, Reason is true / अभिकथन गलत है, कारण सही है
(3) Both Assertion and Reason are true, but Reason does not explain Assertion. / अभिकथन और कारण दोनों ही सही हैं लेकिन कारण, अभिकथन की व्याख्या नहीं करता है।
(4) Both Assertion and Reason are true, and Reason explains Assertion. / अभिकथन और कारण दोनों ही सही हैं तथा कारण, अभिकथन की व्याख्या करता है। ✔

Q.158 A teacher wants to counterbalance the influence of commercial advertisements on students. Which intervention at the school level would be most appropriate in this situation?

एक शिक्षक विद्यार्थियों पर व्यावसायिक विज्ञापनों के प्रभाव को संतुलित करना चाहता है। इस स्थिति में विद्यालय स्तर पर कौन-सा हस्तक्षेपी व्यवधान सबसे उपयुक्त होगा?

(1) Broadcasting educational PSAs to counter commercial excesses / वाणिज्यिक अतिरेकों का प्रतिकार करने के लिए शैक्षिक PSA प्रसारित करना ✔

(2) Encouraging students to buy advertised products as rewards / विद्यार्थियों को पुरस्कार के रूप में विज्ञापित उत्पादों को खरीदने के लिए प्रोत्साहित करना

(3) Limiting discussions related to advertisements in the curriculum / पाठ्यक्रम में विज्ञापनों से संबंधित चर्चाओं को सीमित करना

(4) Increasing daily TV viewing time for students / विद्यार्थियों के लिए प्रतिदिन TV देखने का समय बढ़ाना

Q.159 In modern educational discourse on building school culture, which component is the primary basis of a teacher's professional identity?

विद्यालय संस्कृति के निर्माण के संबंध में आधुनिक शैक्षिक विमर्श में, शिक्षक की पेशेवर पहचान का प्राथमिक आधार कौन-सा अवयव है?

(1) Physical appearance / शारीरिक स्वरूप (Physical appearance)

(2) Administrative rank / प्रशासनिक रैंक (Administrative rank)

(3) Classroom architecture / कक्षाकक्ष वास्तुकला (Classroom architecture)

(4) Beliefs and values / विश्वास और मूल्य (Beliefs and values) ✔

Q.160 How do television advertisements affect the buying behaviour of children?

टेलीविजन विज्ञापन बच्चों के खरीदारी व्यवहार को किस प्रकार प्रभावित करते हैं?

(1) They reduce children's interest in products. / वे उत्पादों में बच्चों की रुचि को कम करते हैं।

(2) They stop children from watching TV. / वे बच्चों को टी.वी. देखने से रोकते हैं।

(3) They motivate children to buy and consume products. / वे बच्चों को उत्पाद खरीदने और उनका उपभोग करने के लिए प्रेरित करते हैं। ✔

(4) They motivate children to ignore products. / वे बच्चों को उत्पादों की अनदेखी करने के लिए प्रेरित करते हैं।

Q.161 In an EVS class, students discuss how their family members do different tasks at home and then relate this to the roles of animals in nature. Which EVS theme and skill are being integrated here?

EVS की कक्षा में, विद्यार्थी चर्चा करते हैं कि उनके परिवार के सदस्य घर पर विभिन्न कार्य कैसे करते हैं और फिर इसे प्रकृति में पशुओं की भूमिकाओं से जोड़ते हैं। यहाँ किस EVS थीम और कौशल को समेकित किया जा रहा है?

(1) Travel theme and discussion skill / यात्रा थीम और परिचर्चा कौशल

(2) Food theme and recording skill / भोजन थीम और रिकॉर्डिंग कौशल

(3) Shelter theme and experimentation skill / निवासस्थल थीम और प्रयोग कौशल

(4) Family/Friends theme and observation skill / परिवार/मित्र थीम और प्रेक्षण कौशल ✔

Q.162 Which of the following options best reflects the dual focus of Environmental Studies in primary education?

प्राथमिक शिक्षा में पर्यावरण अध्ययन के दोहरे फोकस को निम्नलिखित में से कौन-सा विकल्प सर्वोत्तम रूप से दर्शाता है?

(1) Understanding the natural and social environment / प्राकृतिक और सामाजिक वातावरण को समझना ✔

(2) Focusing only on urban development / केवल शहरी विकास पर फोकस करना

(3) Promoting only rote learning / केवल रटने वाले अधिगम को बढ़ावा देना

(4) Only memorising scientific terminology / केवल वैज्ञानिक शब्दावली को याद रखना

Q.163 Which of the following statements best describes the nature of social science in education?

निम्नलिखित में से कौन-सा कथन शिक्षा में सामाजिक विज्ञान की प्रकृति का सर्वोत्तम वर्णन करता है?

(1) It is mainly descriptive and records only historical facts. / यह मुख्यतः वर्णनात्मक है और केवल ऐतिहासिक तथ्यों को रिकॉर्ड करता है।

(2) It is both an art and a science, combining creative insight with systematic inquiry. / यह कला और विज्ञान दोनों है, जो सृजनात्मक अंतर्दृष्टि को व्यवस्थित जांच के साथ संयुक्त करता है। ✔

(3) It studies only social institutions such as government and economy. / यह केवल सरकार और अर्थव्यवस्था जैसे सामाजिक संस्थानों का अध्ययन करता है।

(4) It ignores individual behaviour and focuses entirely on collective tendencies. / यह वैयक्तिक व्यवहार की उपेक्षा करता है और पूरी तरह से सामूहिक प्रवृत्तियों पर ध्यान केंद्रित करता है।

Q.164 In an elective educational course, a teacher asks students to prepare a project for saving electricity in the school. This best explains which feature of open-ended problems?

एक ऐच्छिक शैक्षिक पाठ्यक्रम में, एक शिक्षक विद्यार्थियों को विद्यालय में बिजली की बचत हेतु एक परियोजना तैयार करने के लिए कहता है। यह मुक्तोत्तर (open-ended) समस्याओं की कौन-सी विशेषता की सर्वोत्तम रूप से व्याख्या करता है?

(1) It eliminates the need for rubrics in scoring. / यह प्राप्तांकन में रूब्रिक्स (rubrics) की आवश्यकता का विलोपन करता है।

(2) It limits the answers to only one correct option. / यह उत्तरों को केवल एक सही विकल्प तक सीमित करता है।

(3) It promotes originality and creative thinking. / यह मौलिकता और सर्जनात्मक चिंतन को बढ़ावा देता है। ✔

(4) It requires only factual recall from memory. / इसमें स्मृति से केवल तथ्यात्मक पुन:स्मरण की आवश्यकता होती है।

Q.165 If a school wants to improve the ability of students to use English for real-life purposes, by which principle should their language teaching be guided?

यदि कोई विद्यालय वास्तविक जीवन के प्रयोजनों के लिए अंग्रेजी का उपयोग करने की विद्यार्थियों की क्षमता में सुधार करना चाहता है, तो उनके भाषा शिक्षण का मार्गदर्शन किस सिद्धांत द्वारा किया जाना चाहिए?

(1) Focusing on the history of English literature / अंग्रेजी साहित्य के इतिहास पर ध्यान केंद्रित करना

(2) Use of English for communication / संप्रेषण के लिए अंग्रेजी का उपयोग ✔

(3) Emphasis on memorisation of vocabulary / शब्दावली के स्मरणीकरण पर बल देना

(4) Strict translation practice for the child / बच्चे के लिए सख्त अनुवाद अभ्यास

Q.166 Which of the following is NOT a main feature of the policy of liberalisation?

निम्नलिखित में से कौन-सी उदारीकरण की नीति की एक मुख्य विशेषता नहीं है?

(1) Not providing any opportunity for supply / पूर्ति के लिए कोई अवसर प्रदान न करना ✔

(2) Reduction in government control and freedom to private enterprises / सरकारी नियंत्रण में कमी और निजी उद्यमों को स्वतंत्रता

(3) Opening capital markets for private enterprises / निजी उद्यमों के लिए पूंजी बाजार खोलना

(4) Simplification of licensing policy / लाइसेंसिंग नीति का सरलीकरण

Q.167 Which organisation has described teacher training in environmental education as the 'Priority of Priorities'?

किस संगठन ने पर्यावरण शिक्षा में शिक्षक प्रशिक्षण को 'प्रायोरिटी ऑफ़ प्रायोरिटीज़ (Priority of Priorities')' के रूप में वर्णित किया है?

(1) Supreme Court of India / भारत का उच्चतम न्यायालय

(2) UNESCO ✔

(3) MOEF

(4) NCERT

Q.168 During a professional development session, teachers discuss the grading challenge of the time taken to answer open-ended questions in classes with a large number of students. What is an effective solution for maintaining the quality of evaluation?

एक व्यावसायिक विकास सत्र के दौरान, शिक्षक विद्यार्थियों की बड़ी संख्या वाली कक्षाओं में मुक्तोत्तर प्रश्नों के उत्तर देने में लगने वाले समय की ग्रेडिंग संबंधी चुनौती पर चर्चा करते हैं। मूल्यांकन की गुणवत्ता के अनुरक्षण हेतु प्रभावी समाधान क्या है?

(1) Using only multiple-choice questions for efficiency / दक्षता के लिए केवल बहुविकल्पीय प्रश्नों का उपयोग करना

(2) Allowing answers to be graded only by peers / केवल सहपाठियों द्वारा उत्तरों की ग्रेडिंग की अनुमति देना

(3) Using computer-assisted scoring tools for initial evaluation / प्रारंभिक मूल्यांकन के लिए कंप्यूटर-सहायता प्राप्त स्कोरिंग उपकरणों का उपयोग करना ✔

(4) Minimising the number of open-ended questions / मुक्तोत्तर प्रश्नों की संख्या को न्यूनतम करना

Q.169 Which of the following is a feature of an effective school related to leadership?

निम्नलिखित में से कौन-सी, नेतृत्व से संबंधित एक प्रभावी विद्यालय की विशेषता है?

(1) Centralised decision-making by the principal only / केवल प्रधानाचार्य द्वारा केंद्रीकृत निर्णयन

(2) Shared vision and participative leadership practices / साझा दृष्टि और सहभागी नेतृत्व अभ्यास ✔

(3) Leadership limited only to administrative tasks / केवल प्रशासनिक कार्यों तक सीमित नेतृत्व

(4) Strict adherence to rules without teacher participation / शिक्षक की भागीदारी के बिना नियमों का सख्ती से पालन

Q.170 Which of the following is NOT a step for assessing writing?

निम्नलिखित में से कौन-सा, लेखन के आकलन के लिए एक चरण नहीं है?

(1) Designing a task that gives learners the opportunity to demonstrate skills and knowledge. / एक ऐसा कार्य डिजाइन करना जो शिक्षार्थियों को कौशल और ज्ञान प्रदर्शित करने का अवसर देता है।

(2) Setting clear criteria to assess mastery of skills and knowledge. / कौशल और ज्ञान में महारत का आकलन करने के लिए स्पष्ट मानदंड निर्धारित करना।

(3) Listing the skills and knowledge that learners should acquire from the task. / उन कौशलों और ज्ञान को सूचीबद्ध करना जिन्हें शिक्षार्थियों को कार्य से प्राप्त करना चाहिए।

(4) Creating varied assessment criteria for different situations. / विभिन्न स्थितियों के लिए विविध आकलन मानदंड बनाना। ✔

Q.171 Which of the following is NOT a characteristic of microteaching?

निम्नलिखित में से कौन-सी सूक्ष्म शिक्षण की विशेषता नहीं है?

(1) Practicing one teaching skill at a time / एक समय में एक शिक्षण कौशल का अभ्यास करना

(2) Emphasizing full-length lesson delivery / पूर्ण अवधि के पाठ प्रस्तुतीकरण पर बल देना ✔

(3) Using feedback from peers and supervisors / साथियों और पर्यवेक्षकों से प्रतिपुष्टि का उपयोग करना

(4) Reducing class size to 5–10 students / कक्षा का आकार घटाकर 5–10 विद्यार्थी करना

Q.172 When a school wants to foster inclusive education for children with disabilities, what is the most effective way for the school to engage both the community and support organizations like NGOs and the PTA?

जब कोई विद्यालय दिव्यांग बच्चों के लिए समावेशी शिक्षा को बढ़ावा देना चाहता है, तो समुदाय और NGO तथा PTA जैसे सहायक संगठनों, दोनों को जोड़ने का विद्यालय के लिए सबसे प्रभावी तरीका क्या है?

(1) The school holds parent meetings on inclusion without external support groups / विद्यालय बाहरी सहायता समूहों के बिना समावेशन पर अभिभावक बैठकें आयोजित करता है

(2) **The school works with the PTA for awareness and NGOs for professional training / विद्यालय जागरूकता के लिए PTA के साथ और व्यावसायिक प्रशिक्षण के लिए NGO के साथ काम करता है ✔**

(3) The NGO independently provides teacher training without school collaboration / NGO विद्यालय के सहयोग के बिना स्वतंत्र रूप से शिक्षक प्रशिक्षण प्रदान करता है

(4) The PTA independently conducts workshops for parents on disability inclusion / PTA स्वतंत्र रूप से अभिभावकों के लिए दिव्यांगता समावेशन पर कार्यशालाएँ आयोजित करता है

Q.173 What is a key effect of privatization on the accessibility of education in society?

समाज में शिक्षा की सुलभता पर निजीकरण का एक प्रमुख प्रभाव क्या है?

(1) **Increase in private schools / निजी विद्यालयों में वृद्धि ✔**

(2) Universal free education / सार्वभौमिक निःशुल्क शिक्षा

(3) Mandatory government funding / अनिवार्य सरकारी वित्तपोषण

(4) Decrease in fees / शुल्क में कमी

Q.174 Administrative leadership differs from instructional leadership mainly because of _____.

प्रशासनिक नेतृत्व, अनुदेशनात्मक नेतृत्व से मुख्य रूप से _____ के कारण अलग होता है।

(1) its special concern for students' learning outcomes / विद्यार्थियों के अधिगम प्रतिफल पर अपनी विशेष चिंता

(2) **its emphasis on organisational systems and processes / संगठनात्मक प्रणालियों और प्रक्रियाओं पर अपने बल ✔**

(3) rejecting collaborative initiatives and practices / सहयोगात्मक पहलों और प्रैक्टिस को अस्वीकार करने

(4) its focus on classroom teaching, learning and examinations / कक्षाकक्ष शिक्षण, अधिगम और परीक्षाओं पर अपने फोकस

Q.175 Which of the following is a major component generally assessed in students' writing?

विद्यार्थी लेखन में सामान्यतः आकलन किया जाने वाला एक प्रमुख घटक निम्नलिखित में से कौन-सा है?

(1) Speed of sentence construction / वाक्य निर्माण की गति

(2) **Organisation and coherence / संगठन और सुसंगतता ✔**

(3) Use of rare vocabulary items / दुर्लभ शब्दावली मदों का उपयोग

(4) Length of the written answer / लिखित उत्तर की लंबाई

Q.176 What is a key feature of open-ended questions in educational evaluation?

शैक्षिक मूल्यांकन में मुक्तोत्तर प्रश्नों की एक प्रमुख विशेषता क्या है?

(1) They have only one correct answer. / इनका केवल एक सही उत्तर होता है।

(2) **They can have more than one possible answer. / इनमें एक से अधिक संभावित उत्तर हो सकते हैं। ✔**

(3) They test only factual recall. / ये केवल तथ्यात्मक स्मरण का परीक्षण करते हैं।

(4) They require answers only in yes or no. / इनमें केवल हां या ना में उत्तर देने होते हैं।

Q.177 Which of the following options accurately reflects an effective approach for teaching Environmental Studies at the primary level?

निम्नलिखित में से कौन-सा विकल्प, प्राथमिक स्तर पर पर्यावरण अध्ययन के शिक्षण हेतु एक प्रभावी उपागम को सटीक रूप से प्रतिबिंबित करता है?

(1) Limiting the content to textbook knowledge without practical engagement / प्रायोगिक संलग्नता के बिना विषय-वस्तु को पाठ्यपुस्तक ज्ञान तक सीमित करना

(2) Teacher-centred lectures with emphasis on rote learning / रटन अधिगम पर जोर देने के साथ शिक्षक-केंद्रित व्याख्यान

(3) Focusing entirely on memorising environmental facts / पर्यावरण संबंधी तथ्यों को याद करने पर ही पूरा फोकस करना

(4) Child-centred activities to develop curiosity and life skills in children / बच्चों में जिज्ञासा और जीवन कौशल विकसित करने के लिए बाल-केंद्रित गतिविधियाँ ✔

Q.178 In a three-week unit plan, a teacher introduces rhyme with audio input in the first week, uses an interactive vocabulary app in the second week and organises project work in the third week in which students record dialogues. Which principle of ICT-based material development does this sequence demonstrate?

तीन सप्ताह की इकाई योजना में, एक शिक्षक पहले सप्ताह में ऑडियो इनपुट के साथ अंत्यानुप्रास का परिचय देता है, दूसरे सप्ताह में एक इंटरैक्टिव वोकेब्लरी ऐप का उपयोग करता है और तीसरे सप्ताह में एक परियोजना कार्य का आयोजन करता है जिसमें विद्यार्थियों संवाद रिकॉर्ड करते हैं। यह अनुक्रम ICT आधारित सामग्री विकास के किस सिद्धांत को प्रदर्शित करता है?

(1) Exclusive use of video resources for all weeks / सभी सप्ताहों के लिए वीडियो संसाधनों का विशेष उपयोग

(2) Random selection of digital activities without sequence / अनुक्रम के बिना डिजिटल गतिविधियों का यादृच्छिक चयन

(3) Progressive skill building through different ICT formats / विभिन्न ICT प्रारूपों के माध्यम से प्रगामी कौशल निर्माण ✔

(4) Focusing only on assessment tools for learning / अधिगम के लिए केवल मूल्यांकन उपकरणों पर ध्यान केंद्रण

Q.179 A teacher organises objectives, activities and assessments before teaching a unit. What is this?

एक शिक्षक एक इकाई (Unit) को पढ़ाने से पहले उद्देश्यों, गतिविधियों और आकलनों को व्यवस्थित करता है। यह क्या है?

(1) Instructional improvisation / अनुदेशात्मक तात्कालिक व्यवस्था

(2) Formative assessment design / रचनात्मक मूल्यांकन अभिकल्प

(3) Unit/Lesson plan / इकाई/पाठ योजना ✔

(4) Curriculum transaction / पाठ्यचर्या संव्यवहार

Q.180 At the school level, the primary aim of Social Studies is to:

विद्यालय स्तर पर सामाजिक अध्ययन का प्राथमिक उद्देश्य है:

(1) Ensure mastery of academic research methods / शैक्षणिक अनुसंधान विधियों पर महारत सुनिश्चित करना

(2) Prepare learners for responsible citizenship / शिक्षार्थियों को उत्तरदायी नागरिकता के लिए तैयार करना ✔

(3) Train students as professional social scientists / विद्यार्थियों को पेशेवर सामाजिक वैज्ञानिकों के रूप में प्रशिक्षित करना

(4) Promote memorisation of historical facts / ऐतिहासिक तथ्यों को रटने को बढ़ावा देना

Q.181 Which of the following scenarios best reflects gender inclusion in an educational setting?
निम्नलिखित में से कौन-सा परिदृश्य, शैक्षिक व्यवस्थापन (educational setting) में जेंडर समावेशन को सर्वोत्तम रूप से दर्शाता है?

(1) Despite equal policy provisions, leadership roles remain informally dominated by one gender. / समान नीतिगत प्रावधानों के बावजूद, नेतृत्व की भूमिकाओं पर अनौपचारिक रूप से एक ही जेंडर का प्रभुत्व रहता है।

(2) Girls and boys are encouraged to take up leadership roles in academic and co-curricular activities. / लड़कियों और लड़कों को शैक्षणिक और सह-पाठ्यचारी क्रियाकलापों में नेतृत्व की भूमिका निभाने के लिए प्रोत्साहित किया जाता है। ✔

(3) Leadership opportunities are provided, but participation depends on existing gender-based performance patterns. / नेतृत्व के अवसर प्रदान किए जाते हैं, लेकिन भागीदारी मौजूदा जेंडर-आधारित प्रदर्शन पैटर्न पर निर्भर करती है।

(4) Girls and boys are assigned different leadership roles to respect traditional gender norms. / पारंपरिक जेंडर मानदंडों का सम्मान करने के लिए लड़कियों और लड़कों को अलग-अलग नेतृत्व की भूमिकाएँ सौंपी जाती हैं।

Q.182 Why is the laboratory method considered teacher-centred despite providing practical experience to learners?
शिक्षार्थियों को व्यावहारिक अनुभव प्रदान करने के बावजूद प्रयोगशाला पद्धति को शिक्षक-केंद्रित क्यों माना जाता है?

(1) Because it motivates learners and increases enjoyment. / क्योंकि यह शिक्षार्थियों को प्रेरित करता है और आनंद में वृद्धि करता है।

(2) Because it develops social skills and emotional attitudes through experiments. / क्योंकि यह प्रयोगों के माध्यम से सामाजिक कौशल और संवेगात्मक अभिवृत्तियों को विकसित करता है।

(3) Because learners work in groups or individually without teachers' instructions. / क्योंकि शिक्षार्थी शिक्षकों के अनुदेशों के बिना समूहों में या अलग-अलग कार्य करते हैं।

(4) Because learners follow instructions entirely directed by the teacher or the laboratory manual. / क्योंकि शिक्षार्थी पूरी तरह से शिक्षक या प्रयोग पुस्तिका द्वारा निर्देशित अनुदेशों का अनुसरण करते हैं। ✔

Q.183 Which of the following is a common technique for evaluating language learning in students?
विद्यार्थियों में भाषा अधिगम का मूल्यांकन करने के लिए निम्नलिखित में से कौन-सी सामान्य तकनीक है?

(1) Allowing students to skip lessons without records / विद्यार्थियों को बिना रिकॉर्ड के पाठ छोड़ने की अनुमति देना

(2) Giving only homework without feedback / बिना प्रतिपुष्टि के केवल गृहकार्य देना

(3) Using oral tests, written tests and observation / मौखिक परीक्षा, लिखित परीक्षा और अवलोकन का उपयोग करना ✔

(4) Asking students to read silently without evaluation / विद्यार्थियों को बिना मूल्यांकन के खामोशी से पढ़ने के लिए कहना

Q.184 The conclusion of a valid deductive argument is identified by which quality?
एक वैध निगमनात्मक तर्क (deductive argument) का निष्कर्ष किस गुण द्वारा पहचाना जाता है?

(1) Provisional acceptance / अनंतिम स्वीकृति (Provisional acceptance)

(2) High probability / उच्च प्रसंभाव्यता (High probability)

(3) Empirical verification / आनुभविक सत्यापन (Empirical verification)

(4) Absolute certainty / पूर्ण निश्चितता (Absolute certainty) ✔

Q.185 A student shows strengths in reasoning but has trouble copying from the board and organizing written work. This pattern indicates:

एक विद्यार्थी तर्कशक्ति में सक्षम है, परंतु उसे बोर्ड से नकल करने और लिखित कार्य को व्यवस्थित करने में कठिनाई होती है। यह प्रतिरूप दर्शाता है:

(1) Lack of classroom discipline / कक्षा अनुशासन का अभाव

(2) **A learning disability affecting written expression / लिखित अभिव्यक्ति को प्रभावित करने वाली अधिगम अक्षमता ✔**

(3) Hearing impairment / श्रवण बाधिता

(4) Complete intellectual disability / पूर्ण बौद्धिक अक्षमता

Q.186 How can an anecdotal record be accurately described?

वृत्तांत अभिलेख को किस प्रकार से सटीक रूप से वर्णित किया जा सकता है?

(1) **A word picture of the student in action / क्रियान्वित विद्यार्थी का शब्द चित्र ✔**

(2) Numerical rating of student behaviour / विद्यार्थी व्यवहार का संख्यात्मक श्रेणी निर्धारण

(3) List of correct and incorrect responses / सही और गलत अनुक्रियाओं की सूची

(4) Standardised test report / मानकीकृत परीक्षण रिपोर्ट

Q.187 Which of the following statements accurately describes the process of formation of mathematical concepts?

निम्नलिखित में से कौन-सा कथन, गणितीय अवधारणाओं के निर्माण की प्रक्रिया का सटीक वर्णन करता है?

(1) Mathematical concepts remain tied to the specific objects from which they are learnt. / गणितीय अवधारणाएँ उन विशिष्ट वस्तुओं से संबंधित रहती हैं जिनसे उन्हें सीखा जाता है।

(2) **Mathematical concepts are derived from concrete experiences and can give rise to related abstract ideas. / गणितीय अवधारणाएँ मूर्त अनुभवों से प्राप्त की जाती हैं और यह संबंधित अमूर्त विचारों को उत्पन्न कर सकती हैं। ✔**

(3) Mathematical concepts are related only to counting and measuring objects. / गणितीय अवधारणाएँ केवल वस्तुओं की गणना और माप से संबंधित होती हैं।

(4) Mathematical concepts are memorised from textbooks without reference to real objects. / गणितीय अवधारणाओं को वास्तविक वस्तुओं के संदर्भ के बिना पाठ्यपुस्तकों से याद किया जाता है।

Q.188 If a teacher education institution is planning a curriculum to address the needs of the most prevalent SEDG in India, which group should it focus on?

यदि कोई शिक्षक शिक्षा संस्थान भारत में सबसे अधिक संख्या वाले SEDG की आवश्यकताओं को पूरा करने के लिए पाठ्यक्रम की योजना बना रहा है, तो उसे किस समूह पर ध्यान केंद्रित करना चाहिए?

(1) **Other Backward Classes (OBCs) / अन्य पिछड़ा वर्ग (OBC) ✔**

(2) Scheduled Castes / अनुसूचित जातियाँ

(3) Muslims / मुस्लिम

(4) Scheduled Tribes / अनुसूचित जनजातियाँ

Q.189 A student is often careless, is unable to follow multi-step instructions and finds it difficult to complete tasks. Which condition is the teacher most likely to suspect?

एक विद्यार्थी प्रायः लापरवाह रहता है, बहु-चरणों वाले अनुदेश का पालन करने में असमर्थ रहता है और कार्यों को पूरा करने में कठिनाई महसूस करता है। शिक्षक को किस स्थिति का संदेह होने की सर्वाधिक संभावना है?

(1) Visual impairment / दृष्टि दोष (Visual impairment)

(2) **ADHD ✔**

(3) Dyscalculia / डिस्केल्कुलिया (Dyscalculia)

(4) Dysgraphia / डिस्ग्राफिया (Dysgraphia)

Q.190 How does constructivism suggest learners develop deep understanding?

रचनावाद किस प्रकार शिक्षार्थियों को गहन बोध विकसित करने का सुझाव देता है?

(1) By actively constructing knowledge through experiences and reflection / अनुभवों और अनुचिंतन के माध्यम से सक्रिय रूप से ज्ञान का निर्माण करके ✔

(2) By passively receiving information transmitted by the teacher / शिक्षक द्वारा प्रसारित जानकारी को निष्क्रिय रूप से प्राप्त करके

(3) By following fixed procedures without questioning concepts / संप्रत्ययों पर प्रश्न किए बिना निश्चित प्रक्रियाओं का अनुसरण करके

(4) By memorising facts through repeated practice and recall / पुनरावृत्त अभ्यास और पुन:स्मरण के माध्यम से तथ्यों को याद करके

Q.191 What does the term 'gender' primarily refer to in educational discussions?

शैक्षिक चर्चाओं में 'जेंडर' शब्द मुख्य रूप से किसे संदर्भित करता है?

(1) Biology / जीवविज्ञान

(2) Ethnicity / नृजातीयता

(3) Age / आयु

(4) Social roles / सामाजिक भूमिकाएँ ✔

Q.192 A teacher plays a short story audio for students, then asks them to retell it in their own words and discuss the main ideas in groups. Which LSRW skills are being primarily developed in this activity?

एक शिक्षक विद्यार्थियों के लिए एक लघु कहानी का ऑडियो चलाता है, फिर उनसे उसे अपने शब्दों में दोबारा सुनाने और समूहों में मुख्य विचारों पर चर्चा करने के लिए कहता है। इस गतिविधि में मुख्य रूप से कौन-से LSRW कौशल विकसित किए जा रहे हैं?

(1) Grammar and Vocabulary / व्याकरण और शब्दावली

(2) Only Writing / केवल लेखन

(3) Reading and Writing / पठन और लेखन

(4) Listening and Speaking / श्रवण और वाचन ✔

Q.193 Which cognitive progression accurately describes the transition from observing various distinct four-sided objects to defining the abstract category of "quadrilateral"?

कौन-सा संज्ञानात्मक प्रगमन विभिन्न सुस्पष्ट चार भुजाओं वाली वस्तुओं के प्रेक्षण से लेकर "चतुर्भुज" की अमूर्त श्रेणी को परिभाषित करने तक के संक्रमण का सटीक वर्णन करता है?

(1) Specific to general / विशिष्ट से सामान्य ✔

(2) Concrete to symbolic / मूर्त से प्रतीकात्मक

(3) Procedural to conceptual / प्रक्रियात्मक से संकल्पनात्मक

(4) Inductive to deductive / प्रेरणिक से निगमनिक

Q.194 Which of the following is a form of exclusion mainly seen in Indian education?

निम्नलिखित में से कौन-सा, भारतीय शिक्षा में मुख्यतः देखे जाने वाला बहिष्करण का एक रूप है?

(1) Celebrating different cultural festivals among students / विद्यार्थियों में विभिन्न सांस्कृतिक उत्सव मनाना

(2) Providing scholarships to all students / सभी विद्यार्थियों को छात्रवृत्ति प्रदान करना

(3) Using local languages for instruction / अनुदेश के लिए स्थानीय भाषाओं का उपयोग करना

(4) Not admitting children with disabilities to regular schools / दिव्यांग बच्चों को नियमित विद्यालयों में प्रवेश न देना ✔

Q.195 Which of the following is a main example of inequality?

असमानता का एक मुख्य उदाहरण निम्नलिखित में से कौन-सा है?

(1) Women receiving lower wages for equal work / महिलाओं को समान कार्य के लिए कम वेतन प्राप्त होना ✔

(2) Girls getting the benefit of maternity leave / लड़कियों को प्रसूति अवकाश का लाभ मिलना

(3) Higher dropout level among men / पुरुषों में परित्याग स्तर (dropout level) अधिक होना

(4) Boys studying less compared to young girls / लड़कों का युवा लड़कियों की तुलना में कम पढ़ाई करना

Q.196 A science teacher observed the rapid growth of several plants in sunlight and concluded that sunlight helps in the growth of plants. This is an example of which reasoning?

विज्ञान के एक शिक्षक ने सूर्य की रोशनी में कई पौधों की तेजी से वृद्धि का अवलोकन किया और निष्कर्ष निकाला कि सूर्य की रोशनी पौधों की वृद्धि में सहायक है। यह किस तर्क का उदाहरण है?

(1) Analogical reasoning / अनुरूप तर्क (Analogical reasoning)

(2) Circular reasoning / चक्रीय तर्क (Circular reasoning)

(3) Inductive reasoning / आगमनात्मक तर्क (Inductive reasoning) ✔

(4) Deductive reasoning / निगमनात्मक तर्क (Deductive reasoning)

Q.197 What is the value of zero in the context of whole numbers?

पूर्ण संख्याओं के संदर्भ में शून्य का मान क्या है?

(1) Prime number / अभाज्य संख्या (Prime number)

(2) Composite number / भाज्य संख्या (Composite number)

(3) Negative number / ऋणात्मक संख्या (Negative number)

(4) Neutral element / उदासीन अवयव (Neutral element) ✔

Q.198 The aim of a university's language programme is to monitor the continuous progress of students and adapt instruction accordingly. Which assessment strategy would be most effective in achieving this aim?

विश्वविद्यालय के भाषा कार्यक्रम का उद्देश्य विद्यार्थियों की निरंतर प्रगति की निगरानी करना और उसके अनुसार अनुदेशन को अनुकूलित करना है। इस उद्देश्य को प्राप्त करने के लिए कौन-सी आकलन रणनीति सबसे प्रभावी होगी?

(1) Administering annual standardised tests / वार्षिक मानकीकृत परीक्षणों का प्रबंध करना

(2) Conducting a single summative oral examination / एकल योगात्मक मौखिक परीक्षा आयोजित करना

(3) Using peer assessment for final grades / अंतिम ग्रेड के लिए समकक्षी-आकलन का उपयोग करना

(4) Adopting formative portfolio assessment / रचनात्मक पोर्टफोलियो आकलन को अपनाना ✔

Q.199 A teacher presents a rule: 'Water boils at 100°C at sea level.' She asks students to predict if water will boil at 100°C in the classroom located at sea level.

Which reasoning approach is involved?

एक शिक्षिका एक नियम प्रस्तुत करती है: 'समुद्र तल पर पानी 100°C पर उबलता है।' वह विद्यार्थियों से अनुमान लगाने को कहती है कि क्या समुद्र तल पर स्थित कक्षा में पानी 100°C पर उबलेगा।

इसमें कौन-सा तर्क उपागम शामिल है?

(1) Inductive reasoning from class experiments / कक्षा प्रयोगों से आगमनात्मक तर्क

(2) Emotional reasoning to share experiences / अनुभव साझा करने के लिए भावनात्मक तर्क

(3) Intuitive reasoning based on feelings / भावनाओं पर आधारित अंतर्ज्ञानात्मक तर्क

(4) Deductive reasoning to test a rule in context / संदर्भ में किसी नियम का परीक्षण करने के लिए निगमनात्मक तर्क ✔

Q.200 Which of the following is an example of a learning difficulty commonly seen in children with special needs?

निम्नलिखित में से विशेष आवश्यकता वाले बच्चों में सामान्यतः देखी जाने वाली अधिगम कठिनाई का एक उदाहरण कौन-सा है?

(1) Asthma / दमा (Asthma)

(2) Blindness / अंधापन (Blindness)

(3) **Dyslexia / अपपठन (Dyslexia)** ✔

(4) Autism " / स्वलीनता (Autism)
"

Answer Key / उत्तर कुंजी

1 1	**2** 4	**3** 4	**4** 1	**5** 3	**6** 4	**7** 4	**8** 1	**9** 1	**10** 4	**11** 1	**12** 4	**13** 3	**14** 2	**15** 4
16 3	**17** 4	**18** 1	**19** 1	**20** 4	**21** 1	**22** 1	**23** 3	**24** 2	**25** 3	**26** 3	**27** 3	**28** 2	**29** 2	**30** 4
31 4	**32** 3	**33** 2	**34** 1	**35** 2	**36** 4	**37** 3	**38** 3	**39** 3	**40** 1	**41** 3	**42** 2	**43** 2	**44** 3	**45** 3
46 4	**47** 1	**48** 1	**49** 3	**50** 2	**51** 1	**52** 2	**53** 4	**54** 3	**55** 3	**56** 4	**57** 2	**58** 2	**59** 3	**60** 3
61 3	**62** 2	**63** 2	**64** 1	**65** 3	**66** 4	**67** 4	**68** 2	**69** 2	**70** 2	**71** 1	**72** 2	**73** 4	**74** 2	**75** 4
76 3	**77** 4	**78** 4	**79** 2	**80** 4	**81** 2	**82** 1	**83** 1	**84** 4	**85** 1	**86** 1	**87** 2	**88** 2	**89** 3	**90** 1
91 3	**92** 1	**93** 1	**94** 4	**95** 1	**96** 1	**97** 3	**98** 3	**99** 2	**100** 2	**101** 3	**102** 3	**103** 4	**104** 2	**105** 1
106 2	**107** 4	**108** 4	**109** 3	**110** 3	**111** 2	**112** 3	**113** 1	**114** 1	**115** 1	**116** 2	**117** 4	**118** 2	**119** 2	**120** 1
121 3	**122** 2	**123** 4	**124** 4	**125** 3	**126** 4	**127** 4	**128** 2	**129** 2	**130** 2	**131** 2	**132** 3	**133** 1	**134** 4	**135** 2
136 1	**137** 4	**138** 4	**139** 4	**140** 1	**141** 3	**142** 1	**143** 2	**144** 4	**145** 4	**146** 4	**147** 2	**148** 1	**149** 4	**150** 2
151 1	**152** 4	**153** 1	**154** 3	**155** 1	**156** 2	**157** 4	**158** 1	**159** 4	**160** 3	**161** 4	**162** 1	**163** 2	**164** 3	**165** 2
166 1	**167** 2	**168** 3	**169** 2	**170** 4	**171** 2	**172** 2	**173** 1	**174** 2	**175** 2	**176** 2	**177** 4	**178** 3	**179** 3	**180** 2
181 2	**182** 4	**183** 3	**184** 4	**185** 2	**186** 1	**187** 2	**188** 1	**189** 2	**190** 1	**191** 4	**192** 4	**193** 1	**194** 4	**195** 1
196 3	**197** 4	**198** 4	**199** 4	**200** 3										

QuickSarkari.com | WhatsApp Channel | Telegram: t.me/quick_sarkari

GOVT. OF NCT OF DELHI
Delhi Subordinate Services Selection Board
FC-18, Institutional Area, Karkardooma, Delhi – 110092.
www.dsssb.delhigovt.nic.in

Participant ID	[redacted]
Participant Name	[redacted]
Test Center Name	[redacted]
Test Date	18/02/2026
Test Time	9:00 AM - 11:00 AM
Subject	Assistant Teacher Primary

Section : **General Intelligence and Reasoning Ability**

Q.1 अंग्रेज़ी वर्णमाला क्रम पर आधारित, निम्नलिखित चार अक्षर-समूहों में से तीन एक निश्चित तरीके से समान हैं और इस प्रकार वे एक ग्रुप बनाते हैं। कौन-सा अक्षर-समूह उस ग्रुप से संबंधित नहीं है?
(नोट: असंगत अक्षर-समूह, व्यंजनों/स्वरों की संख्या या उनकी स्थिति पर आधारित नहीं है।)

Ans
✔ 1. JHD
✘ 2. ROL
✘ 3. DAX
✘ 4. PMJ

Question ID : **441009782360**
Option 1 ID : **4410093083443**
Option 2 ID : **4410093083445**
Option 3 ID : **4410093083446**
Option 4 ID : **4410093083444**

Q.2 एक निश्चित तर्क का अनुसरण करते हुए, 7 का संबंध 31 से है। समान तर्क का अनुसरण करते हुए, 9 का संबंध 43 से है। उसी तर्क का अनुसरण करने पर, 13 का संबंध निम्नलिखित में से किस विकल्प से हैं?
(नोट: संख्याओं को उनके घटक अंकों में तोड़े बिना, पूर्ण संख्याओं पर संक्रियाएं की जानी चाहिए। उदाहरण के लिए 13 लीजिए, 13 पर संक्रियाएं जैसे कि 13 में जोड़ना/घटाना/गुणा करना, किया जा सकता है। 13 को 1 और 3 में तोड़ना तथा फिर 1 और 3 पर गणितीय संक्रियाएं करने की अनुमति नहीं है।)

Ans
✘ 1. 68
✘ 2. 63
✘ 3. 55
✔ 4. 67

Question ID : **441009552469**
Option 1 ID : **4410092165193**
Option 2 ID : **4410092165191**
Option 3 ID : **4410092165190**
Option 4 ID : **4410092165192**

QuickSarkari.com | WhatsApp Channel | Telegram: t.me/quick_sarkari

Q.3 दी गई शृंखला में '?' के स्थान पर क्या आएगा?

2 4 12 44 ? 684

Ans
✗ 1. 170
✗ 2. 168
✗ 3. 176
✓ 4. 172

Question ID : **4410091528147**
Option 1 ID : **4410096035782**
Option 2 ID : **4410096035781**
Option 3 ID : **4410096035784**
Option 4 ID : **4410096035783**

Q.4 उस विकल्प का चयन करें जिसमें दी गई आकृति उसके भाग के रूप में अंतर्निहित है (आकृति को घुमाने की अनुमति नहीं है)।



Ans

✓ 1.


✗ 2.


✗ 3.


✗ 4.
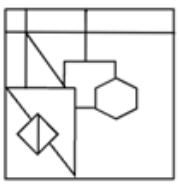

Question ID : **4410091524694**
Option 1 ID : **4410096021988**
Option 2 ID : **4410096021987**
Option 3 ID : **4410096021989**
Option 4 ID : **4410096021990**

QuickSarkari

Q.5 निम्नलिखित अक्षर श्रृंखला का संदर्भ लीजिए और प्रश्न का उत्तर दीजिए।
(बाएँ) A B E R F S Q B S Z S S A E H L V X Y (दाएँ)
ऐसे कितने स्वर हैं जिनमें से प्रत्येक के ठीक पहले एक स्वर है और साथ ही ठीक बाद में एक व्यंजन है?

Ans
✗ 1. 4
✗ 2. 2
✓ 3. 1
✗ 4. 3

Question ID : **441009779684**
Option 1 ID : **4410093072742**
Option 2 ID : **4410093072740**
Option 3 ID : **4410093072739**
Option 4 ID : **4410093072741**

Q.6 63 व्यक्ति उत्तर की ओर अभिमुख होकर एक पंक्ति में खड़े हैं। राज बाएं छोर से 20वें स्थान पर है, जबकि दक्ष दाएं छोर से 17वें स्थान पर है। राज और दक्ष के बीच कितने व्यक्ति हैं?

Ans
✗ 1. 22
✗ 2. 25
✗ 3. 24
✓ 4. 26

Question ID : **4410091614424**
Option 1 ID : **4410096376513**
Option 2 ID : **4410096376515**
Option 3 ID : **4410096376514**
Option 4 ID : **4410096376516**

Q.7 निम्नलिखित अक्षर श्रृंखला का संदर्भ लीजिए और नीचे दिए गए प्रश्न का उत्तर दीजिए। गिनती केवल बाएं से दाएं की जानी चाहिए।

(बाएं) W E S I C Q M X Z O R Y B G T D F H A K U (दाएं)

ऐसे कितने स्वर हैं, जिनमें से प्रत्येक के ठीक पहले एक स्वर और ठीक बाद में एक व्यंजन है

Ans
✗ 1. 3
✗ 2. 2
✗ 3. 1
✓ 4. 0

Question ID : **441009216394**
Option 1 ID : **441009849618**
Option 2 ID : **441009849617**
Option 3 ID : **441009849616**
Option 4 ID : **441009849615**

QuickSarkari.com | WhatsApp Channel | Telegram: t.me/quick_sarkari

Q.8 यदि जल स्रोत को चित्र में दिखाए अनुसार M-N दिशा के अनुदिश रखा जाए, तो दिए गए विकल्पों में से कौन-सा विकल्प चित्र का जल प्रतिबिंब होगा?



Ans

✔ 1. 

✘ 2. 

✘ 3. 

✘ 4. 

Question ID : **4410098649 28**
Option 1 ID : **4410093412814**
Option 2 ID : **4410093412815**
Option 3 ID : **4410093412812**
Option 4 ID : **4410093412813**

Q.9 निम्नलिखित समीकरण में '+' और '÷' को आपस में बदल देने पर तथा '-' और '×' को आपस में बदल देने पर '?' के स्थान पर क्या आएगा?

16 × 4 - 3 ÷ 21 + 3 = ?

Ans

✔ 1. 11

✘ 2. 15

✘ 3. 23

✘ 4. 19

Question ID : **4410095544 21**
Option 1 ID : **4410092173001**
Option 2 ID : **4410092173000**
Option 3 ID : **4410092172998**
Option 4 ID : **4410092172999**

QuickSarkari.com | WhatsApp Channel | Telegram: t.me/quick_sarkari

Q.10 अंग्रेज़ी वर्णमाला क्रम पर आधारित, निम्नलिखित चार अक्षर-समूह युग्मों में से तीन एक निश्चित प्रकार से समान हैं और इस प्रकार वे एक ग्रुप बनाते हैं। कौन-सा अक्षर-समूह युग्म, उस ग्रुप से संबंधित नहीं है? (नोट: असंगत अक्षर-समूह युग्म, व्यंजनों/स्वरों की संख्या या उनकी स्थिति पर आधारित नहीं है।)

Ans
✗ 1. IF–HE
✗ 2. MJ–LI
✗ 3. ZW–YV
✓ 4. PM–NN

Question ID : **4410098071 66**
Option 1 ID : **4410093182790**
Option 2 ID : **4410093182789**
Option 3 ID : **4410093182788**
Option 4 ID : **4410093182787**

Q.11 Q, U, I, L, T और S एक ही इमारत के छह अलग-अलग तलों पर रहते हैं। इमारत के सबसे निचले तल का क्रमांक 1 है, उसके ऊपर वाले तल का क्रमांक 2 है, और इसी प्रकार सबसे ऊपर वाले तल का क्रमांक 6 है। I और S के बीच केवल दो व्यक्ति रहते हैं। T के ऊपर केवल U रहता है। Q एक सम क्रमांक वाले तल पर रहता है। I सबसे निचले तल पर रहता है। L और U के बीच कितने व्यक्ति रहते हैं?

Ans
✓ 1. दो
✗ 2. चार
✗ 3. एक
✗ 4. तीन

Question ID : **4410091518897**
Option 1 ID : **4410095998843**
Option 2 ID : **4410095998845**
Option 3 ID : **4410095998842**
Option 4 ID : **4410095998844**

Q.12 अंग्रेजी वर्णमाला क्रम के आधार पर, एक निश्चित तरीके से XBFG का संबंध JNRS से है। इसी प्रकार, UYCD का संबंध GKOP से है। समान तर्क का अनुसरण करते हुए, EIMN का संबंध निम्नलिखित में से किससे है?

Ans
✗ 1. QUXZ
✗ 2. QVXF
✗ 3. QTXZ
✓ 4. QUYZ

Question ID : **441009779048**
Option 1 ID : **4410093070198**
Option 2 ID : **4410093070196**
Option 3 ID : **4410093070197**
Option 4 ID : **4410093070195**

QuickSarkari.com | WhatsApp Channel | Telegram: t.me/quick_sarkari

Q.13 एक निश्चित कूट भाषा में, 'PAST' को '9873' के रूप में कूटबद्ध किया जाता है और 'STAY' को '1879' के रूप में कूटबद्ध किया जाता है। दी गई कूट भाषा में 'Y' के लिए कूट क्या है?

Ans
✗ 1. 9
✗ 2. 8
✓ 3. 1
✗ 4. 3

Question ID : **4410091614543**
Option 1 ID : **4410096376987**
Option 2 ID : **4410096376988**
Option 3 ID : **4410096376985**
Option 4 ID : **4410096376986**

Q.14 निम्नलिखित श्रृंखला का संदर्भ लें और प्रश्न का उत्तर दें। गिनती केवल बाएँ से दाएँ की जानी है। (सभी संख्याएँ केवल एकल अंकीय संख्याएँ हैं)
(बाएँ) 8 2 1 3 7 9 5 1 4 2 5 8 4 1 3 7 4 2 9 4 5 9 2 1 3 4 5 6 8 (दाएँ)
ऐसे कितने विषम अंक हैं जिनमें से प्रत्येक के ठीक पहले एक विषम अंक है और ठीक बाद में एक सम अंक भी है?

Ans
✗ 1. एक
✓ 2. तीन से अधिक
✗ 3. तीन
✗ 4. दो

Question ID : **441009784848**
Option 1 ID : **4410093093396**
Option 2 ID : **4410093093395**
Option 3 ID : **4410093093398**
Option 4 ID : **4410093093397**

Q.15 सात व्यक्ति, R, O, A, M, I, N और G, एक पंक्ति में उत्तर की ओर अभिमुख होकर बैठे हैं। A के बाईं ओर कोई भी नहीं बैठा है। A और I के बीच केवल चार व्यक्ति बैठे हैं। R के दाईं ओर केवल तीन व्यक्ति बैठे हैं। G, N के ठीक बाईं ओर पड़ोस में बैठा है। O, R का निकटतम पड़ोसी नहीं है। पंक्ति के दाहिने छोर पर कौन बैठा है?

Ans
✗ 1. M
✗ 2. G
✗ 3. R
✓ 4. O

Question ID : **4410091518806**
Option 1 ID : **4410095998500**
Option 2 ID : **4410095998501**
Option 3 ID : **4410095998498**
Option 4 ID : **4410095998499**

QuickSarkari.com | WhatsApp Channel | Telegram: t.me/quick_sarkari

Q.16 अंग्रेजी वर्णमाला क्रम पर आधारित दी गई श्रृंखला में ? के स्थान पर क्या आना चाहिए?

NKST VSAB DAIJ LIQR ?

Ans
✗ 1. TVGY
✗ 2. TZSW
✓ 3. TQYZ
✗ 4. TOZY

Question ID : **4410091519034**
Option 1 ID : **4410095999389**
Option 2 ID : **4410095999388**
Option 3 ID : **4410095999386**
Option 4 ID : **4410095999387**

Q.17 यदि संख्या 6847153 के प्रत्येक विषम अंक में 1 जोड़ दिया जाए तथा प्रत्येक सम अंक में से 2 घटा दिया जाए, तो इस प्रकार बनी नई संख्या में बाईं ओर से दूसरा अंक निम्नलिखित में से कौन-सा होगा?

Ans
✗ 1. 4
✗ 2. 9
✗ 3. 8
✓ 4. 6

Question ID : **4410091621603**
Option 1 ID : **4410096405215**
Option 2 ID : **4410096405218**
Option 3 ID : **4410096405217**
Option 4 ID : **4410096405216**

Q.18 यह प्रश्न निम्नलिखित शब्दों पर आधारित है

END RUN WAS CUT

दाईं ओर से अंतिम शब्द के दूसरे अक्षर और बाईं ओर से तीसरे शब्द के तीसरे अक्षर के बीच अंग्रेजी वर्णमाला क्रम में कितने अक्षर हैं?

Ans
✓ 1. चार
✗ 2. छह
✗ 3. सात
✗ 4. आठ

Question ID : **4410091150118**
Option 1 ID : **4410094535428**
Option 2 ID : **4410094535429**
Option 3 ID : **4410094535430**
Option 4 ID : **4410094535431**

Quick Sarkari

Q.19 G, L का पिता है। L, U का पुत्र है। T, N का भाई है। N, U का पुत्र है। G का N से क्या संबंध है?

Ans
✔ 1. पिता
✘ 2. पुत्र
✘ 3. भाई
✘ 4. पति

Question ID : **4410091619020**
Option 1 ID : **4410096394952**
Option 2 ID : **4410096394954**
Option 3 ID : **4410096394953**
Option 4 ID : **4410096394955**

Q.20 छह बॉक्स G, H, I, J, K और L एक के ऊपर एक रखे गए हैं, लेकिन जरूरी नहीं कि वे इसी क्रम में हों। K के नीचे केवल दो बॉक्स रखे गए हैं। J के ऊपर केवल दो बॉक्स रखे गए हैं। J और G के बीच केवल दो बॉक्स रखे गए हैं। I को H के ठीक नीचे रखा गया है। H और L के बीच कितने बॉक्स रखे गए हैं?

Ans
✘ 1. 2
✘ 2. 4
✘ 3. 1
✔ 4. 3

Question ID : **441009216660**
Option 1 ID : **441009850680**
Option 2 ID : **441009850682**
Option 3 ID : **441009850679**
Option 4 ID : **441009850681**

Section : **General Awareness**

Q.1 भारत के मानचित्र पर, कोरबा तापीय विद्युत संयंत्र (Korba Thermal Power Plant) कहां स्थित होगा?

Ans
✔ 1. छत्तीसगढ़
✘ 2. महाराष्ट्र
✘ 3. झारखंड
✘ 4. ओडिशा

Question ID : **441009320234**
Option 1 ID : **4410091247206**
Option 2 ID : **4410091247205**
Option 3 ID : **4410091247204**
Option 4 ID : **4410091247207**

QuickSarkari.com | WhatsApp Channel | Telegram: t.me/quick_sarkari

Q.2 2011 की जनगणना के अनुसार, निम्नलिखित में से किस राज्य की जनसंख्या सबसे अधिक थी?

Ans
✔ 1. उत्तर प्रदेश
✘ 2. पश्चिम बंगाल
✘ 3. महाराष्ट्र
✘ 4. बिहार

Question ID : **441009637183**
Option 1 ID : **4410092502877**
Option 2 ID : **4410092502876**
Option 3 ID : **4410092502875**
Option 4 ID : **4410092502878**

Q.3 2025 लॉरियस स्पोर्ट्स अवार्ड्स (Laureus Sports Awards) में लामिन यामल को किस श्रेणी में पहचान मिली?

Ans
✘ 1. मोस्ट प्रोमिसिंग स्पोर्ट्सपर्सन (Most Promising Sportsperson)
✘ 2. राइजिंग स्टार ऑफ द ईयर (Rising Star of the Year)
✔ 3. वर्ल्ड ब्रेकथ्रू ऑफ द ईयर (World Breakthrough of the Year)
✘ 4. परफार्मेंश ऑफ द ईयर (Performance of the Year)

Question ID : **441009282508**
Option 1 ID : **4410091097233**
Option 2 ID : **4410091097230**
Option 3 ID : **4410091097231**
Option 4 ID : **4410091097232**

Q.4 GNP, राष्ट्रीय आय लेखांकन में _____के लिए प्रयुक्त होने वाला एक संक्षिप्त रूप है।

Ans
✘ 1. सकल निवल उत्पाद (Gross Net Product)
✔ 2. सकल राष्ट्रीय उत्पाद (Gross National Product)
✘ 3. सामान्य राष्ट्रीय नीति (General National Policy)
✘ 4. सकल नाममात्र उत्पाद (Gross Nominal Product)

Question ID : **441009627603**
Option 1 ID : **4410092464566**
Option 2 ID : **4410092464564**
Option 3 ID : **4410092464567**
Option 4 ID : **4410092464565**

Q.5 निम्नलिखित में से किस राज्य में माघ महीने के कृष्ण पक्ष के चौथे दिन सकट चौथ (Sakat Chauth) त्योहार मनाया जाता है?

Ans

✗ 1. असम

✗ 2. पश्चिम बंगाल

✓ 3. उत्तर प्रदेश

✗ 4. कर्नाटक

Question ID : **4410096070 55**
Option 1 ID : **4410092383339**
Option 2 ID : **4410092383338**
Option 3 ID : **4410092383337**
Option 4 ID : **4410092383340**

Q.6 हाइड्रोबोरेनन-ऑक्सीकरण अभिक्रिया की सर्वप्रथम रिपोर्ट 1950 के दशक के उत्तरार्ध में किसके द्वारा की गई थी?

Ans

✗ 1. स्टेफनी लुईस क्वोलेक (Stephanie Louise Kwolek)

✗ 2. हर्मन एमिल लुईस फिशर (Hermann Emil Louis Fischer)

✓ 3. हर्बर्ट चार्ल्स ब्राउन (Herbert Charles Brown)

✗ 4. जॉर्ज चार्ल्स डी हेवेसी (George Charles de Hevesy)

Question ID : **4410096245 53**
Option 1 ID : **4410092452346**
Option 2 ID : **4410092452347**
Option 3 ID : **4410092452345**
Option 4 ID : **4410092452344**

Q.7 1526 में बाबर द्वारा दिल्ली सल्तनत के निम्नलिखित में से किस शासक को पराजित करने के परिणामस्वरूप भारत में मुगल साम्राज्य की स्थापना हुई?

Ans

✗ 1. अलाउद्दीन खिलजी

✗ 2. शाहजहाँ

✓ 3. इब्राहिम लोदी

✗ 4. बलबन

Question ID : **4410091551337**
Option 1 ID : **4410096127668**
Option 2 ID : **4410096127669**
Option 3 ID : **4410096127667**
Option 4 ID : **4410096127670**

QuickSarkari.com | WhatsApp Channel | Telegram: t.me/quick_sarkari

Q.8 इंडिया ऑडियो समिट एंड अवार्ड्स (India Audio Summit and Awards) 2025 का तीसरा संस्करण निम्नलिखित में से किस शहर में आयोजित किया गया?

Ans
✗ 1. दिल्ली
✓ 2. मुंबई
✗ 3. हैदराबाद
✗ 4. बेंगलुरु

Question ID : **4410091275920**
Option 1 ID : **4410091071848**
Option 2 ID : **4410091071850**
Option 3 ID : **4410091071849**
Option 4 ID : **4410091071851**

Q.9 निम्नलिखित में से किस अधिनियम के तहत लोक अदालत को वैधानिक दर्जा दिया गया है?

Ans
✗ 1. विधिक सेवा प्राधिकरण अधिनियम, 1997
✓ 2. विधिक सेवा प्राधिकरण अधिनियम, 1987
✗ 3. विधिक सेवा प्राधिकरण अधिनियम, 2000
✗ 4. विधिक सेवा प्राधिकरण अधिनियम, 1990

Question ID : **4410099763**
Option 1 ID : **44100938837**
Option 2 ID : **44100938835**
Option 3 ID : **44100938838**
Option 4 ID : **44100938836**

Q.10 निम्नलिखित में से किस राष्ट्रकूट शासक ने एलोरा में प्रसिद्ध कैलाशनाथ मंदिर का निर्माण कराया था?

Ans
✗ 1. गोविंद तृतीय
✗ 2. दंतिदुर्ग
✗ 3. अमोघवर्ष प्रथम
✓ 4. कृष्ण प्रथम

Question ID : **4410091270506**
Option 1 ID : **4410095013944**
Option 2 ID : **4410095013941**
Option 3 ID : **4410095013942**
Option 4 ID : **4410095013943**

Q.11 अक्टूबर 2025 में, 47वें आसियान (ASEAN) शिखर सम्मेलन की मेजबानी किस देश ने की थी?

Ans
✗ 1. इंडोनेशिया
✗ 2. थाईलैंड
✗ 3. फिलीपींस
✓ 4. मलेशिया

Question ID : **4410091556418**
Option 1 ID : **4410096148242**
Option 2 ID : **4410096148243**
Option 3 ID : **4410096148245**
Option 4 ID : **4410096148244**

Quick Sarkari

Q.12 भारत के संविधान के अनुसार, निम्नलिखित में से कौन-सा संसद सदस्य के लिए अर्हता नहीं है?

Ans

✗ 1. व्यक्ति को भारत का नागरिक होना चाहिए और तीसरी अनुसूची द्वारा निर्धारित प्रपत्र में शपथ या प्रतिज्ञान लेना चाहिए।

✗ 2. व्यक्ति की आयु राज्यसभा के मामले में कम से कम 30 वर्ष और लोक सभा के मामले में कम से कम 25 वर्ष होनी चाहिए।

✓ 3. व्यक्ति के पास विश्वविद्यालय अनुदान आयोग (UGC) द्वारा मान्यता प्राप्त विश्वविद्यालय से डिग्री होनी चाहिए।

✗ 4. व्यक्ति के पास अतिरिक्त अर्हताएँ होनी चाहिए जो संसद द्वारा पारित विधि द्वारा या उसके अधीन विहित/निर्दिष्ट की जा सकती हैं।

Question ID : **441009672194**
Option 1 ID : **4410092642870**
Option 2 ID : **4410092642871**
Option 3 ID : **4410092642873**
Option 4 ID : **4410092642872**

Q.13 निम्नलिखित में से कौन-सा, भारत का प्रमुख लौह अयस्क पेटी नहीं है?

Ans

✗ 1. सिंहभूम पेटी

✓ 2. रत्नागिरी-मुंबई

✗ 3. बल्लारि-चित्रदुर्ग

✗ 4. दुर्ग-बस्तर-चंद्रपुर

Question ID : **441009372072**
Option 1 ID : **4410091454031**
Option 2 ID : **4410091454030**
Option 3 ID : **4410091454029**
Option 4 ID : **4410091454028**

Q.14 27 नवंबर 2025 को इंडियन स्पेस स्टार्टअप स्काईरूट्स इन्फिनिटी कैम्पस (Indian space startup Skyroot's Infinity Campus) का उद्घाटन किसने किया?

Ans

✓ 1. भारत के प्रधानमंत्री

✗ 2. भारत के राष्ट्रपति

✗ 3. रक्षा मंत्री

✗ 4. ISRO के अध्यक्ष

Question ID : **4410091563044**
Option 1 ID : **4410096173741**
Option 2 ID : **4410096173739**
Option 3 ID : **4410096173742**
Option 4 ID : **4410096173740**

QuickSarkari.com | WhatsApp Channel | Telegram: t.me/quick_sarkari

Q.15 निम्नलिखित में से किसने 1931 में चन्हुदड़ो स्थल की खुदाई की थी?

Ans
✗ 1. आर.डी. बनर्जी
✓ 2. एन.जी. मजूमदार
✗ 3. दया राम साहनी
✗ 4. फ्लिंट ब्लेड्स

Question ID : **441009606128**
Option 1 ID : **4410092379631**
Option 2 ID : **4410092379629**
Option 3 ID : **4410092379632**
Option 4 ID : **4410092379630**

Q.16 1863 में जेएआर न्यूलैंड्स (J.A.R. Newlands) द्वारा कौन-सी वर्गीकरण विधि प्रतिपादित की गई थी?

Ans
✗ 1. समूह सिद्धांत
✗ 2. आवर्त सारणी
✗ 3. त्रिक का नियम
✓ 4. अष्टक नियम

Question ID : **441009513366**
Option 1 ID : **4410092008511**
Option 2 ID : **4410092008509**
Option 3 ID : **4410092008508**
Option 4 ID : **4410092008510**

Q.17 Outsourcing is one of the important outcomes of which process?

Ans
✗ 1. Communism
✗ 2. Liberalisation
✓ 3. Globalisation
✗ 4. Capitalisation

Question ID : **441009626495**
Option 1 ID : **4410092460134**
Option 2 ID : **4410092460133**
Option 3 ID : **4410092460135**
Option 4 ID : **4410092460132**

Quick Sarkari

Q.18 निम्नलिखित राज्य के नीति निर्देशक सिद्धांतों (DPSP) का उनके अनुच्छेदों से मिलान करें।

DPSP अनुच्छेद
A. सहकारी समितियों को प्रोत्साहन देना i. अनुच्छेद 43B
B. समान नागरिक संहिता ii. अनुच्छेद 44
C. कार्यपालिका से न्यायपालिका का पृथक्करण iii. अनुच्छेद 40
D. ग्राम पंचायतों का संगठन iv. अनुच्छेद 50

Ans
✗ 1. A-iii, B-i, C-ii, D-iv
✗ 2. A-i, B-iii, C-ii, D-iv
✓ 3. A-i, B-ii, C-iv, D-iii
✗ 4. A-ii, B-i, C-iii, D-iv

Question ID : **441009397422**
Option 1 ID : **4410091555135**
Option 2 ID : **4410091555133**
Option 3 ID : **4410091555134**
Option 4 ID : **4410091555132**

Q.19 1526 में घटित किस घटना ने लोदी वंश के अंत और मुगल शासन की शुरुआत को चिह्नित किया?

Ans
✗ 1. खानवा का युद्ध
✗ 2. घाघरा का युद्ध
✓ 3. पानीपत का युद्ध
✗ 4. चौसा का युद्ध

Question ID : **441009205180**
Option 1 ID : **441009806941**
Option 2 ID : **441009806942**
Option 3 ID : **441009806943**
Option 4 ID : **441009806944**

Q.20 निम्नलिखित में से किसे राष्ट्रीय खेल पुरस्कार 2024 में एथलेटिक्स में अर्जुन पुरस्कार (आजीवन) से सम्मानित किया गया?

Ans
✓ 1. सुचा सिंह
✗ 2. मिल्खा सिंह
✗ 3. नीरज चोपड़ा
✗ 4. अंजू बॉबी जॉर्ज

Question ID : **441009375551**
Option 1 ID : **4410091467758**
Option 2 ID : **4410091467759**
Option 3 ID : **4410091467760**
Option 4 ID : **4410091467761**

Section : **Arithmetical and Numerical Ability**

QuickSarkari.com | WhatsApp Channel | Telegram: t.me/quick_sarkari

Q.1 तालिका का अध्ययन करें और दिए गए प्रश्न का उत्तर दें।

दी गई तालिका में छह विद्यार्थियों के दो विषयों, S1 और S2 में प्राप्तांक दर्शाए गए हैं।

विद्यार्थी	विषय	
	S1	S2
A	150	200
B	160	180
C	200	300
D	120	400
E	300	570
F	100	220

यदि विषय S1 के लिए पूर्णांक 300 हैं, तो विद्यार्थी D ने विषय S1 में कितने प्रतिशत अंक प्राप्त किए हैं?

Ans
✗ 1. 45%
✗ 2. 30%
✓ 3. 40%
✗ 4. 50%

Question ID : **441009957548**
Option 1 ID : **4410093783590**
Option 2 ID : **4410093783589**
Option 3 ID : **4410093783587**
Option 4 ID : **4410093783588**

Q.2 एक व्यक्ति 90 km/hr की चाल से साइकिल चलाकर एक पुल को 37 मिनट में पार करता है। पुल की लंबाई ज्ञात कीजिए।

Ans
✗ 1. 62.5 km
✓ 2. 55.5 km
✗ 3. 57.9 km
✗ 4. 65.6 km

Question ID : **441009209078**
Option 1 ID : **441009821596**
Option 2 ID : **441009821595**
Option 3 ID : **441009821597**
Option 4 ID : **441009821598**

Q.3 10 संख्याओं का योग 696 है। उनका औसत ज्ञात कीजिए।

Ans
✗ 1. 68.6
✓ 2. 69.6
✗ 3. 67.6
✗ 4. 70.6

Question ID : **441009581968**
Option 1 ID : **4410092282999**
Option 2 ID : **4410092282998**
Option 3 ID : **4410092283001**
Option 4 ID : **4410092283000**

QuickSarkari.com | WhatsApp Channel | Telegram: t.me/quick_sarkari

Q.4 एक बेलनाकार छड़ का बाह्य वक्र पृष्ठीय क्षेत्रफल 8100 cm^2 है। यदि छड़ की लंबाई 89 cm है, तो छड़ की बाह्य त्रिज्या (cm में, दशमलव के दो स्थानों तक पूर्णांकित) ज्ञात कीजिए।

$(\pi = \frac{22}{7}$ लीजिए)

Ans
1. 17.93
2. 12.71
3. 14.48
4. 17.79

Question ID : **441009621527**
Option 1 ID : **4410092440241**
Option 2 ID : **4410092440242**
Option 3 ID : **4410092440240**
Option 4 ID : **4410092440243**

Q.5 एक वस्तु का अंकित मूल्य ₹2,500 है। अंकित मूल्य पर 20% की छूट देने पर ₹200 की हानि होती है। हानि प्रतिशत (दशमलव के दो स्थानों तक पूर्णांकित) ज्ञात कीजिए।

Ans
1. 10.09%
2. 10.01%
3. 9.09%
4. 9.05%

Question ID : **441009208801**
Option 1 ID : **441009820490**
Option 2 ID : **441009820488**
Option 3 ID : **441009820487**
Option 4 ID : **441009820489**

Q.6 किस राशि (₹ में) पर 4 वर्षों में 8% वार्षिक ब्याज दर से साधारण ब्याज के रूप में ₹1680 प्राप्त होगा?

Ans
1. 5255
2. 5260
3. 5265
4. 5250

Question ID : **441009852621**
Option 1 ID : **4410093363458**
Option 2 ID : **4410093363457**
Option 3 ID : **4410093363459**
Option 4 ID : **4410093363456**

QuickSarkari

Q.7 महेश ₹7,704 में कुछ मात्रा में जौ खरीदता है। इसका आधा हिस्सा 44% लाभ पर बेचा जाता है। यदि महेश कुल मिलाकर 47% लाभ अर्जित करना चाहता है, तो शेष जौ का विक्रय मूल्य (₹ में) ज्ञात कीजिए।

Ans
✔ 1. 5,778
✘ 2. 6,773
✘ 3. 5,161
✘ 4. 6,747

Question ID : **441009895003**
Option 1 ID : **4410093534082**
Option 2 ID : **4410093534085**
Option 3 ID : **4410093534083**
Option 4 ID : **4410093534084**

Q.8 एक दुकानदार दो प्रकार के चावलों को 5 : 3 के अनुपात में मिलाता है जिनमें से एक की कीमत ₹75 प्रति kg और दूसरे की कीमत ₹85 प्रति kg है। मिश्रण का प्रति kg औसत मूल्य ज्ञात कीजिए।

Ans
✔ 1. ₹78.75
✘ 2. ₹80.58
✘ 3. ₹83.76
✘ 4. ₹76.25

Question ID : **441009318042**
Option 1 ID : **4410091238634**
Option 2 ID : **4410091238635**
Option 3 ID : **4410091238636**
Option 4 ID : **4410091238633**

Q.9 विपुल का वेतन ₹12,000/माह है। वह ₹5,000 घर के किराए पर, ₹2,500 बिलों पर खर्च करता है और बाकी की रकम उसकी मासिक बचत है। यदि उसने अपने जन्मदिन के महीने में जन्मदिन मनाने के लिए अपनी पूरी मासिक बचत खर्च कर दी, एक वर्ष में उसकी बचत (₹ में) ज्ञात कीजिए।

Ans
✘ 1. 54,000
✘ 2. 40,500
✔ 3. 49,500
✘ 4. 45,000

Question ID : **441009209382**
Option 1 ID : **441009822812**
Option 2 ID : **441009822814**
Option 3 ID : **441009822811**
Option 4 ID : **441009822813**

QuickSarkari.com | WhatsApp Channel | Telegram: t.me/quick_sarkari

Q.10 $5 + 3 \times 5 + 4 \times 5^2 + 3 \times 5^3 + 4 \times 5^4$ का मान ज्ञात कीजिए।

Ans
✗ 1. 2599
✓ 2. 2995
✗ 3. 2955
✗ 4. 2959

Question ID : **4410098256**
Option 1 ID : **44100932728**
Option 2 ID : **44100932730**
Option 3 ID : **44100932731**
Option 4 ID : **44100932729**

Q.11 एक वर्गाकार हॉल जिसकी ऊंचाई 15 m है, के भीतर वायु का आयतन 1500 m^3 है। हॉल के भीतर विकर्ण रूप से जा सकने वाले लट्ठे की अधिकतम लंबाई ज्ञात कीजिए? (अपना उत्तर दशमलव के 2 स्थान तक पूर्णांकित करें)

Ans
✓ 1. 20.62 m
✗ 2. 28.75 m
✗ 3. 27.08 m
✗ 4. 25.45 m

Question ID : **44100952300**
Option 1 ID : **441009208315**
Option 2 ID : **441009208318**
Option 3 ID : **441009208317**
Option 4 ID : **441009208316**

Q.12 $2.\overline{2} + 1.\overline{18} - 1.\overline{2}$ का मान ज्ञात कीजिए।

Ans
✗ 1. $\frac{25}{11}$
✓ 2. $\frac{24}{11}$
✗ 3. $\frac{47}{22}$
✗ 4. $\frac{43}{22}$

Question ID : **441009914289**
Option 1 ID : **4410093611408**
Option 2 ID : **4410093611407**
Option 3 ID : **4410093611410**
Option 4 ID : **4410093611409**

QuickSarkari

Q.13 X ने ₹93,750 से एक व्यवसाय शुरू किया, और कुछ महीनों बाद Y भी ₹75,000 के साथ उस व्यवसाय में शामिल हो गया। वर्ष के अंत में लाभ को 5 : 3 के अनुपात में विभाजित किया गया, तो Y कितने महीनों बाद X के साथ व्यापार में शामिल हुआ?

Ans
✗ 1. 4
✗ 2. 5
✗ 3. 9
✓ 4. 3

Question ID : **441009202632**
Option 1 ID : **441009797207**
Option 2 ID : **441009797204**
Option 3 ID : **441009797206**
Option 4 ID : **441009797205**

Q.14 राकेश किसी कार्य को 6 घंटे में पूरा कर सकता है। शिवम उसे 14 घंटे में पूरा कर सकता है। रूपेश की सहायता से उन्होंने उस कार्य को 3 घंटे में पूरा कर लिया। रूपेश अकेले उसी कार्य का दो गुना कार्य कितने घंटे में पूरा कर सकता है?

Ans
✗ 1. 20
✗ 2. 23
✓ 3. 21
✗ 4. 22

Question ID : **441009897342**
Option 1 ID : **4410093543439**
Option 2 ID : **4410093543441**
Option 3 ID : **4410093543438**
Option 4 ID : **4410093543440**

Q.15 एक साइकिल-चालक 30 m/s की चाल से किसी वर्गाकार खेत का चक्कर 18 सेकंड में पूरा करता है। उस खेत की भुजा की लंबाई (m में) ज्ञात कीजिए।

Ans
✗ 1. 145
✗ 2. 125
✓ 3. 135
✗ 4. 155

Question ID : **44100918121**
Option 1 ID : **44100972305**
Option 2 ID : **44100972304**
Option 3 ID : **44100972303**
Option 4 ID : **44100972306**

QuickSarkari.com | WhatsApp Channel | Telegram: t.me/quick_sarkari

Q.16 दो पाइप, A और B, एक टंकी को क्रमशः 8 मिनट और 10 मिनट में भर सकते हैं। दोनों पाइप एक साथ टंकी भरना शुरू करते हैं, लेकिन 4 मिनट बाद एक तकनीकी समस्या के कारण वे रुक जाते हैं। फिर एक तीसरे पाइप C द्वारा टंकी का शेष भाग भरा जाता है, जो टंकी को अकेले 12 मिनट में भर सकता है। पाइप C को टंकी का शेष भाग भरने में कितना समय लगेगा?

Ans
✗ 1. 4.2 मिनट
✗ 2. 2.5 मिनट
✗ 3. 3.1 मिनट
✓ 4. 1.2 मिनट

Question ID : **44100952097**
Option 1 ID : **441009207515**
Option 2 ID : **441009207513**
Option 3 ID : **441009207514**
Option 4 ID : **441009207512**

Q.17 एक दुकानदार ने ₹1,200 में एक वस्तु खरीदी। उसे 30% लाभ अर्जित करने के लिए, वस्तु को किस कीमत (₹ में) पर बेचना चाहिए?

Ans
✗ 1. 1,548
✓ 2. 1,560
✗ 3. 840
✗ 4. 1,572

Question ID : **441009191043**
Option 1 ID : **441009752975**
Option 2 ID : **441009752972**
Option 3 ID : **441009752973**
Option 4 ID : **441009752974**

Q.18 गोपाल के दो पौत्र, अक्षय और अतुल हैं। 14 वर्षीय अक्षय को गोपाल की संपत्ति से कुछ धनराशि मिलती है, और 15 वर्षीय अतुल को शेष धनराशि मिलती है। लेकिन अक्षय और अतुल को यह धनराशि तभी मिलेगी जब वे 21 वर्ष के हो जाएंगे। तब तक, धनराशि किसी बैंक में रखी जाएगी जिस पर 4% वार्षिक दर से ब्याज (वार्षिक रूप से संयोजित) अर्जित होगा। जब दोनों 21 वर्ष के हो जाते हैं तो उन्हें समान धनराशि मिलती है। यदि गोपाल के पास कुल धनराशि ₹25,500 थी, तो गोपाल ने शुरू में अतुल को कितनी धनराशि (₹ में) दी थी?

Ans
✗ 1. 13,350
✓ 2. 13,000
✗ 3. 12,500
✗ 4. 12,250

Question ID : **441009543443**
Option 1 ID : **4410092129170**
Option 2 ID : **4410092129168**
Option 3 ID : **4410092129169**
Option 4 ID : **4410092129171**

Q.19 दो रेलगाड़ियाँ क्रमशः स्टेशन X और Y से एक ही समय पर चलती हैं और एक-दूसरे की ओर बढ़ती हैं। एक रेलगाड़ी 72 km/h की चाल से चलती है और दूसरी रेलगाड़ी 48 km/h की चाल से चलती है। जिस बिंदु पर वे मिलती हैं, वहाँ तक तेज़ चलने वाली रेलगाड़ी ने धीमी चलने वाली रेलगाड़ी से 96 km अधिक दूरी तय की है। स्टेशन X और Y के बीच की दूरी कितनी है?

Ans
✗ 1. 420 km
✗ 2. 520 km
✓ 3. 480 km
✗ 4. 450 km

Question ID : **441009835901**
Option 1 ID : **4410093296723**
Option 2 ID : **4410093296721**
Option 3 ID : **4410093296722**
Option 4 ID : **4410093296720**

Q.20 दस व्यक्ति प्रतिदिन 6 घंटे काम करके किसी कार्य को 8 दिनों में पूरा कर सकते हैं। यदि वे प्रतिदिन 8 घंटे काम करें, तो उसी कार्य को 4 दिनों में पूरा करने के लिए कितने व्यक्तियों की आवश्यकता होगी?

Ans
✗ 1. 5
✗ 2. 18
✓ 3. 15
✗ 4. 10

Question ID : **44100951975**
Option 1 ID : **441009207028**
Option 2 ID : **441009207031**
Option 3 ID : **441009207030**
Option 4 ID : **441009207029**

Section : **English Language and Comprehension**

Q.1 Select the most appropriate option to fill in the blank.

It enables individuals to access vast knowledge resources and connect with people _____.

Ans
✗ 1. adversely
✗ 2. critically
✓ 3. globally
✗ 4. presumably

Question ID : **4410091524567**
Option 1 ID : **4410096021493**
Option 2 ID : **4410096021491**
Option 3 ID : **4410096021494**
Option 4 ID : **4410096021492**

Q.2 **Select the most appropriate article to fill in the blank. If no article is needed, select 'No article required'.**

_____ book that I bought yesterday is about ancient history.

3166

Ans

✗ 1. An

✓ 2. The

✗ 3. A

✗ 4. No article required

Question ID : **4410091498420**
Option 1 ID : **4410091948895**
Option 2 ID : **4410091948893**
Option 3 ID : **4410091948894**
Option 4 ID : **4410091948892**

Q.3 **Choose the word that is similar in meaning to the underlined word.**

His <u>astute</u> observations helped the team solve the problem quickly.

Ans

✗ 1. diligent

✓ 2. shrewd

✗ 3. vapid

✗ 4. inert

Question ID : **4410091555190**
Option 1 ID : **4410096143373**
Option 2 ID : **4410096143372**
Option 3 ID : **4410096143371**
Option 4 ID : **4410096143374**

Q.4 **Choose the option that can replace the highlighted text with the correct idiom.**
At the meeting, she took full control of the situation and guided everyone confidently

Ans

✓ 1. took the bull by the horns

✗ 2. built castles in the air

✗ 3. turned a blind eye

✗ 4. hit the roof

Question ID : **4410091527633**
Option 1 ID : **4410096033736**
Option 2 ID : **4410096033737**
Option 3 ID : **4410096033738**
Option 4 ID : **4410096033735**

QuickSarkari.com | WhatsApp Channel | Telegram: t.me/quick_sarkari

Q.5 **Select the most appropriate option to fill in the blank.**

Everyone says that he's now _____ rich.

Ans

✗ 1. continuously

✗ 2. repeatedly

✓ 3. enormously

✗ 4. surprisingly

Question ID : **441009205024**
Option 1 ID : **441009806331**
Option 2 ID : **441009806333**
Option 3 ID : **441009806332**
Option 4 ID : **441009806334**

Q.6 **Choose the correct conjunction to complete the sentence.**

You may not succeed _____ you try your best and remain consistent.

Ans

✗ 1. when

✗ 2. while

✗ 3. since

✓ 4. unless

Question ID : **4410091123440**
Option 1 ID : **4410094429324**
Option 2 ID : **4410094429321**
Option 3 ID : **4410094429323**
Option 4 ID : **4410094429322**

Q.7 **In the given question, a statement divided into different segments is provided. Rearrange all the segments to form a coherent statement.**

(a) glowing softly in the dark
(b) the lantern swung gently
(c) casting long shadows
(d) across the mossy floor
(e) of the silent forest

Ans

✗ 1. ABECD

✗ 2. BAECD

✗ 3. BACDE

✓ 4. ADEBC

Question ID : **4410093249**
Option 1 ID : **44100913005**
Option 2 ID : **44100913006**
Option 3 ID : **44100913004**
Option 4 ID : **44100913003**

QuickSarkari.com | WhatsApp Channel | Telegram: t.me/quick_sarkari

Q.8 **Identify the antonym of the highlighted word used in the sentence.**

The volunteers worked tirelessly to uplift families living in <u>abject</u> poverty.

Ans

✗ 1. wretched

✓ 2. haughty

✗ 3. meek

✗ 4. friendly

Question ID : **4410091526860**
Option 1 ID : **4410096030551**
Option 2 ID : **4410096030553**
Option 3 ID : **4410096030552**
Option 4 ID : **4410096030550**

Q.9 **Out of the four alternatives, choose the incorrectly spelt word.**

Ans

✗ 1. Exhilarate

✓ 2. Perseverence

✗ 3. Conspicuous

✗ 4. Bureaucracy

Question ID : **4410091132289**
Option 1 ID : **4410094464562**
Option 2 ID : **4410094464561**
Option 3 ID : **4410094464563**
Option 4 ID : **4410094464564**

Q.10 **Choose the option that can replace the highlighted text with the correct proverb.**
The teacher reminded the students that their hard work or negligence now would determine their future success, meaning you will face the consequences of your actions

Ans

✗ 1. Don't judge a book by its cover

✓ 2. As you sow, so shall you reap

✗ 3. Every cloud has a silver lining

✗ 4. Actions speak louder than words

Question ID : **4410091527665**
Option 1 ID : **4410096033877**
Option 2 ID : **4410096033875**
Option 3 ID : **4410096033878**
Option 4 ID : **4410096033876**

QuickSarkari.com | WhatsApp Channel | Telegram: t.me/quick_sarkari

Q.11 **Select the option that can be used as a one-word substitute for the given group of words.**

A wishful longing for something one has known in the past

Ans
✔ 1. Nostalgia
✘ 2. Retrospection
✘ 3. Sentiment
✘ 4. Unhappiness

Question ID : **441009432248**
Option 1 ID : **4410091688510**
Option 2 ID : **4410091688513**
Option 3 ID : **4410091688511**
Option 4 ID : **4410091688512**

Q.12 **Replace the highlighted word segment with the appropriate one-word substitute.**

He is (a/an) person who is indifferent to pleasure or pain and remains calm in every situation.

Ans
✘ 1. novice
✔ 2. stoic
✘ 3. egotist
✘ 4. epicure

Question ID : **4410091555269**
Option 1 ID : **4410096143629**
Option 2 ID : **4410096143627**
Option 3 ID : **4410096143630**
Option 4 ID : **4410096143628**

Q.13 **Select the most appropriate option to fill in the blank.**

Who invented ___ radio?

Ans
✘ 1. an
✘ 2. of
✘ 3. a
✔ 4. the

Question ID : **441009482917**
Option 1 ID : **4410091887019**
Option 2 ID : **4410091887020**
Option 3 ID : **4410091887018**
Option 4 ID : **4410091887017**

QuickSarkari

Q.14 **Identify the INCORRECTLY spelt word in the given sentence and select the option that rectifies it.**

Galileo escaped burning for hersey because he apologised and withdrew his previous statements.2108

Ans

✗ 1. Apologissed

✓ 2. Heresy

✗ 3. Withdraw

✗ 4. Gallileo

Question ID : **4410091417170**
Option 1 ID : **4410091634072**
Option 2 ID : **4410091634071**
Option 3 ID : **4410091634073**
Option 4 ID : **4410091634070**

Q.15 **Parts of a sentence are given below in jumbled order. Arrange the parts in the correct order to form a meaningful sentence.**

A. turn provides the necessary drive
B. ensures peace and harmony ,which in
C. maintaining discipline in public life
D. for progress and prosperity

Ans

✗ 1. BADC

✗ 2. ABCD

✗ 3. DCBA

✓ 4. CBAD

Question ID : **4410091534568**
Option 1 ID : **4410096061521**
Option 2 ID : **4410096061522**
Option 3 ID : **4410096061520**
Option 4 ID : **4410096061519**

Quick Sarkari

Comprehension:

Read the passage and answer the following questions.

The rise of remote work has reshaped workplace culture in unexpected ways. Before the pandemic, working from home was considered a privilege available only to a few. Today, many organizations have adopted flexible models where employees choose between remote and in-office work. This shift has allowed people to balance personal and professional responsibilities more effectively. For example, parents can adjust work hours around school schedules, while others save time by avoiding long commutes.

However, remote work is not without its difficulties. Some employees struggle with loneliness, blurred boundaries, or the pressure of being available at all hours. Organizations too face challenges in maintaining team cohesion and ensuring fair performance evaluations.

Despite these concerns, research suggests that hybrid work models are likely to stay. They offer the flexibility of remote work while preserving the collaborative atmosphere of offices. As companies redesign their policies, the future workplace will likely prioritize employee well-being, autonomy, and trust.

SubQuestion No : 16

Q.16 What is the central idea of the passage?

Ans

✗ 1. Productivity decreases with flexibility and lack of monitoring

✗ 2. The decline of productivity in remote work environments

✓ 3. Hybrid work models are reshaping workplace culture

✗ 4. Physical office spaces are becoming entirely irrelevant

Question ID : **4410091566794**
Option 1 ID : **4410096188510**
Option 2 ID : **4410096188508**
Option 3 ID : **4410096188509**
Option 4 ID : **4410096188507**

Quick Sarkari

Comprehension:

Read the passage and answer the following questions.

The rise of remote work has reshaped workplace culture in unexpected ways. Before the pandemic, working from home was considered a privilege available only to a few. Today, many organizations have adopted flexible models where employees choose between remote and in-office work. This shift has allowed people to balance personal and professional responsibilities more effectively. For example, parents can adjust work hours around school schedules, while others save time by avoiding long commutes.

However, remote work is not without its difficulties. Some employees struggle with loneliness, blurred boundaries, or the pressure of being available at all hours. Organizations too face challenges in maintaining team cohesion and ensuring fair performance evaluations.

Despite these concerns, research suggests that hybrid work models are likely to stay. They offer the flexibility of remote work while preserving the collaborative atmosphere of offices. As companies redesign their policies, the future workplace will likely prioritize employee well-being, autonomy, and trust.

SubQuestion No : 17

Q.17 What is the structure of the passage?

Ans

✗ 1. Cause–effect only

✗ 2. Comparison of two unrelated topics

✗ 3. Chronological narrative

✓ 4. Benefits-challenges-future outlook

Question ID : **4410091566795**
Option 1 ID : **4410096188513**
Option 2 ID : **4410096188511**
Option 3 ID : **4410096188514**
Option 4 ID : **4410096188512**

QuickSarkari

Comprehension:

Read the passage and answer the following questions.

The rise of remote work has reshaped workplace culture in unexpected ways. Before the pandemic, working from home was considered a privilege available only to a few. Today, many organizations have adopted flexible models where employees choose between remote and in-office work. This shift has allowed people to balance personal and professional responsibilities more effectively. For example, parents can adjust work hours around school schedules, while others save time by avoiding long commutes.

However, remote work is not without its difficulties. Some employees struggle with loneliness, blurred boundaries, or the pressure of being available at all hours. Organizations too face challenges in maintaining team cohesion and ensuring fair performance evaluations.

Despite these concerns, research suggests that hybrid work models are likely to stay. They offer the flexibility of remote work while preserving the collaborative atmosphere of offices. As companies redesign their policies, the future workplace will likely prioritize employee well-being, autonomy, and trust.

SubQuestion No : 18

Q.18 What can be inferred about the future of work?

Ans

✗ 1. Fully remote setups will vanish due to their negative social impacts.

✗ 2. Employees dislike flexibility because it makes them less productive.

✗ 3. Traditional offices will return because of their superior productivity.

✓ 4. Hybrid models will continue due to their balanced advantages.

Question ID : **4410091566796**
Option 1 ID : **4410096188517**
Option 2 ID : **4410096188518**
Option 3 ID : **4410096188515**
Option 4 ID : **4410096188516**

QuickSarkari

Comprehension:

Read the passage and answer the following questions.

The rise of remote work has reshaped workplace culture in unexpected ways. Before the pandemic, working from home was considered a privilege available only to a few. Today, many organizations have adopted flexible models where employees choose between remote and in-office work. This shift has allowed people to balance personal and professional responsibilities more effectively. For example, parents can adjust work hours around school schedules, while others save time by avoiding long commutes.

However, remote work is not without its difficulties. Some employees struggle with loneliness, blurred boundaries, or the pressure of being available at all hours. Organizations too face challenges in maintaining team cohesion and ensuring fair performance evaluations.

Despite these concerns, research suggests that hybrid work models are likely to stay. They offer the flexibility of remote work while preserving the collaborative atmosphere of offices. As companies redesign their policies, the future workplace will likely prioritize employee well-being, autonomy, and trust.

SubQuestion No : 19

Q.19 Identify a suitable title for the passage.

Ans

✗ 1. Why Remote Work Fails

✓ 2. Redefining Workplace Culture in the Hybrid Era

✗ 3. Productivity in Modern Times

✗ 4. The End of Offices

Question ID : **4410091566797**
Option 1 ID : **4410096188520**
Option 2 ID : **4410096188521**
Option 3 ID : **4410096188522**
Option 4 ID : **4410096188519**

QuickSarkari

Comprehension:

Read the passage and answer the following questions.

The rise of remote work has reshaped workplace culture in unexpected ways. Before the pandemic, working from home was considered a privilege available only to a few. Today, many organizations have adopted flexible models where employees choose between remote and in-office work. This shift has allowed people to balance personal and professional responsibilities more effectively. For example, parents can adjust work hours around school schedules, while others save time by avoiding long commutes.

However, remote work is not without its difficulties. Some employees struggle with loneliness, blurred boundaries, or the pressure of being available at all hours. Organizations too face challenges in maintaining team cohesion and ensuring fair performance evaluations.

Despite these concerns, research suggests that hybrid work models are likely to stay. They offer the flexibility of remote work while preserving the collaborative atmosphere of offices. As companies redesign their policies, the future workplace will likely prioritize employee well-being, autonomy, and trust.

SubQuestion No : 20

Q.20 Which real-world trend does this passage best illustrate?

Ans

✗ 1. The global return to rigid office structures to maximize productivity

✗ 2. The complete abandonment of urban centers in favour of rural living

✗ 3. The total transition to digital automation to eliminate human interaction

✓ 4. The prioritization of employee well-being over traditional office presence

Question ID : **4410091566799**
Option 1 ID : **4410096188528**
Option 2 ID : **4410096188530**
Option 3 ID : **4410096188527**
Option 4 ID : **4410096188529**

Section : **Hindi Language and Comprehension**

Q.1 निम्न में से वाक्य में रेखांकित शब्द का पर्यायवाची शब्द कौन-सा है ?
'वह अपने कार्य में दक्ष है।'

Ans

✗ 1. निकाय

✓ 2. कुशल

✗ 3. निधि

✗ 4. दत्त

Question ID : **4410091626516**
Option 1 ID : **4410096424439**
Option 2 ID : **4410096424437**
Option 3 ID : **4410096424438**
Option 4 ID : **4410096424436**

QuickSarkari.com | WhatsApp Channel | Telegram: t.me/quick_sarkari

Q.2 दिए गए वाक्यांश के लिए सार्थक शब्द बताएं -
'विज्ञान का विद्वान'

Ans
✔ 1. वैज्ञानिक
✘ 2. व्याख्याता
✘ 3. ज्ञानी
✘ 4. वैदेशिक

Question ID : **4410091527963**
Option 1 ID : **4410096035048**
Option 2 ID : **4410096035050**
Option 3 ID : **4410096035049**
Option 4 ID : **4410096035047**

Q.3 दिए गए वाक्य को क्रम में लिखें -
1. और मन को भी प्रसन्न करता है
2. बल्कि हमारे आस-पास के वातावरण की भी ज़रूरी है
3. स्वच्छता केवल शरीर की ही नहीं
4. क्योंकि एक साफ-सुथरा वातावरण हमें रोगों से बचाता है

Ans
✔ 1. 3241
✘ 2. 4123
✘ 3. 3142
✘ 4. 2134

Question ID : **441009644891**
Option 1 ID : **4410092533649**
Option 2 ID : **4410092533648**
Option 3 ID : **4410092533650**
Option 4 ID : **4410092533647**

Q.4 निम्नलिखित वाक्य के रेखांकित शब्द का पर्यायवाची कौन-सा नहीं है?
'उसका शरीर रक्त की कमी से पीला पड़ गया।

Ans
✘ 1. रुधिर
✘ 2. लोहू
✘ 3. खून
✔ 4. बचाव

Question ID : **4410091530856**
Option 1 ID : **4410096046509**
Option 2 ID : **4410096046507**
Option 3 ID : **4410096046508**
Option 4 ID : **4410096046510**

QuickSarkari.com | WhatsApp Channel | Telegram: t.me/quick_sarkari

Q.5 उपयुक्त क्रिया-विशेषण शब्द के प्रयोग से वाक्य पूरा कीजिए।
'मुझे _____ याद आया।'

Ans
✔ 1. अचानक
✘ 2. बगल
✘ 3. अत्यंत
✘ 4. कुशलपूर्वक

Question ID : **4410091288639**
Option 1 ID : **4410095086428**
Option 2 ID : **4410095086427**
Option 3 ID : **4410095086429**
Option 4 ID : **4410095086426**

Q.6 "उगल देना"- मुहावरे का क्या अर्थ है?

Ans
✔ 1. भेद खोल देना
✘ 2. व्यर्थ पैसा गँवा देना
✘ 3. मज़ाक करना
✘ 4. क्रोध करना

Question ID : **4410091618309**
Option 1 ID : **4410096392100**
Option 2 ID : **4410096392102**
Option 3 ID : **4410096392101**
Option 4 ID : **4410096392099**

Q.7 दिए गए वाक्य के किस भाग में त्रुटि है?
निंदा का उद्गम ही हिनता और कमज़ोरी से होता है।

Ans
✘ 1. और कमज़ोरी
✔ 2. ही हिनता
✘ 3. निंदा का उद्गम
✘ 4. से होता है।

Question ID : **4410091618474**
Option 1 ID : **4410096392769**
Option 2 ID : **4410096392768**
Option 3 ID : **4410096392767**
Option 4 ID : **4410096392770**

Quick Sarkari

Q.8 निम्नांकित विकल्पों में से उचित क्रिया का चयन करके वाक्य पूर्ण करें-
छायादार वृक्षों के नीचे लेटना कितना अच्छा .....है।

Ans
✗ 1. लग रहा
✓ 2. लगता
✗ 3. लगते
✗ 4. लगना

Question ID : **4410091184037**
Option 1 ID : **4410094670178**
Option 2 ID : **4410094670177**
Option 3 ID : **4410094670176**
Option 4 ID : **4410094670179**

Q.9 निम्नांकित विकल्पों में से उचित कारक चिह्न का चयन करके वाक्य पूर्ण करें-
सीमा ने अपनी सहेली ..... सुंदर सा उपहार लिया।

Ans
✗ 1. को लिए
✗ 2. की लिए
✓ 3. के लिए
✗ 4. पर

Question ID : **4410091184021**
Option 1 ID : **4410094670104**
Option 2 ID : **4410094670106**
Option 3 ID : **4410094670105**
Option 4 ID : **4410094670107**

Q.10 "आँख का अंधा गाँठ का पूरा"- लोकोक्ति का सबसे सटीक अर्थ क्या होगा?

Ans
✓ 1. मूर्ख किन्तु धनी
✗ 2. जो अपना हित-अनहित न समझ सके
✗ 3. बहुत कम खर्च करनेवाला
✗ 4. बहुत अधिक खर्च करनेवाला

Question ID : **4410091618434**
Option 1 ID : **4410096392608**
Option 2 ID : **4410096392607**
Option 3 ID : **4410096392609**
Option 4 ID : **4410096392610**

QuickSarkari.com | WhatsApp Channel | Telegram: t.me/quick_sarkari

Q.11 दिए गए वाक्य के रिक्त स्थान में कर्ता कारक चिह्न का प्रयोग करें -
'सुमित घोड़े को दौड़ाया।'

Ans
✗ 1. से
✗ 2. को
✓ 3. ने
✗ 4. के लिए

Question ID : **4410091528001**
Option 1 ID : **4410096035201**
Option 2 ID : **4410096035203**
Option 3 ID : **4410096035202**
Option 4 ID : **4410096035204**

Q.12 उचित क्रिया विशेषण शब्द चुनकर वाक्य पूर्ण कीजिए।
'मेरे बुलाने पर वह _____ चला आया।'

Ans
✓ 1. तुरंत
✗ 2. प्रायः
✗ 3. केवल
✗ 4. दिनभर

Question ID : **4410091288660**
Option 1 ID : **4410095086510**
Option 2 ID : **4410095086511**
Option 3 ID : **4410095086513**
Option 4 ID : **4410095086512**

Q.13 वाक्य में रेखांकित शब्द का सही विलोम चुनिए।
'सोहन का पूरा घर <u>ख़ुशी</u> में डूबा हुआ था ।'

Ans
✓ 1. गम
✗ 2. दोष
✗ 3. गौड़
✗ 4. ग्राम

Question ID : **4410091526877**
Option 1 ID : **4410096030618**
Option 2 ID : **4410096030619**
Option 3 ID : **4410096030620**
Option 4 ID : **4410096030621**

QuickSarkari.com | WhatsApp Channel | Telegram: t.me/quick_sarkari

Q.14 मैं रिश्वत को काला नाग समझता हूँ।
उपर्युक्त रेखांकित शब्द का विलोम क्या होगा ?

Ans
✗ 1. अपना
✗ 2. मित्र
✗ 3. सहयोग
✓ 4. गोरा

Question ID : **4410091624861**
Option 1 ID : **4410096417974**
Option 2 ID : **4410096417972**
Option 3 ID : **4410096417971**
Option 4 ID : **4410096417973**

Q.15 निम्न में से 'न रहेगा बाँस न बजेगी बाँसुरी' लोकोक्ति का सही अर्थ कौन है?

Ans
✓ 1. न कारण होगा, न कार्य होगा
✗ 2. चोर पर रक्षा का विश्वास नहीं
✗ 3. शाम होते ही सोने लगना
✗ 4. हर हालत में मेरा ही लाभ

Question ID : **4410091526577**
Option 1 ID : **4410096029428**
Option 2 ID : **4410096029429**
Option 3 ID : **4410096029427**
Option 4 ID : **4410096029426**

Comprehension:
निम्नलिखित गद्यांश के आधार पर प्रश्नों के उत्तर दें -
विज्ञापन से होने वाले **आर्थिक**[1] लाभ के कारण धन लेकर समाचार प्रकाशित करने की **प्रवृति**[2] भी आज कल बढ़ी है। इससे पत्रकारिता के मूल्यों का ह्रास हुआ है। मीडिया को **लोकतंत्र**[3] का चतुर्थ स्तम्भ कहा जाता है। विज्ञापनदाताओं के अनुचित प्रभाव एवं व्यावसायिक लाभ को प्राथमिकता देने के कारण मीडिया के उद्देश्यों पर प्रतिकूल प्रभाव पड़ता है। कई बार यह भी देखने में आता है कि सरकारी विज्ञापनों के लोभ में समाचार-पत्र एवं टीवी चैनल सरकार के विरोध में कुछ प्रकाशित या **प्रसारित**[4] नहीं कर पाते हैं। विज्ञापन से एकाधिकार की प्रवृत्ति का सृजन होता है। माइक्रोसॉफ्ट प्रारंभ से ही यह प्रयास करती रही है कि कंप्यूटर की दुनिया में उसका **एकाधिकार**[5] रहे। इसके लिए वह समय-समय पर विज्ञापनों का भी सहारा लेती है। विज्ञापनों के माध्यम से एकाधिकार की लड़ाई हमेशा माँग में वृद्धि करवाने में सहायक होती है। इस तरह विज्ञापन की दुनिया एक रोचक दुनिया है, जहाँ पैसा है, ग्लैमर है, शोहरत है एवं सफलता की ऊँचाइयाँ हैं।

SubQuestion No : 16

Q.16 रेखांकित शब्द 1 का अर्थ बताएं -

Ans
✓ 1. रुपया-पैसा
✗ 2. व्यय
✗ 3. शब्द का अर्थ
✗ 4. अर्थ लिखना

Question ID : **4410091525084**
Option 1 ID : **4410096023530**
Option 2 ID : **4410096023533**
Option 3 ID : **4410096023531**
Option 4 ID : **4410096023532**

Comprehension:

निम्नलिखित गद्यांश के आधार पर प्रश्नों के उत्तर दें -

विज्ञापन से होने वाले **आर्थिक**[1] लाभ के कारण धन लेकर समाचार प्रकाशित करने की **प्रवृति**[2] भी आज कल बढ़ी है। इससे पत्रकारिता के मूल्यों का ह्रास हुआ है। मीडिया को **लोकतंत्र**[3] का चतुर्थ स्तम्भ कहा जाता है। विज्ञापनदाताओं के अनुचित प्रभाव एवं व्यावसायिक लाभ को प्राथमिकता देने के कारण मीडिया के उद्देश्यों पर प्रतिकूल प्रभाव पड़ता है। कई बार यह भी देखने में आता है कि सरकारी विज्ञापनों के लोभ में समाचार-पत्र एवं टीवी चैनल सरकार के विरोध में कुछ प्रकाशित या **प्रसारित**[4] नहीं कर पाते हैं। विज्ञापन से एकाधिकार की प्रवृत्ति का सृजन होता है। माइक्रोसॉफ्ट प्रारंभ से ही यह प्रयास करती रही है कि कंप्यूटर की दुनिया में उसका **एकाधिकार**[5] रहे। इसके लिए वह समय-समय पर विज्ञापनों का भी सहारा लेती है। विज्ञापनों के माध्यम से एकाधिकार की लड़ाई हमेशा माँग में वृद्धि करवाने में सहायक होती है। इस तरह विज्ञापन की दुनिया एक रोचक दुनिया है, जहाँ पैसा है, ग्लैमर है, शोहरत है एवं सफलता की ऊँचाइयाँ हैं।

SubQuestion No : 17

Q.17 रेखांकित शब्द 2 का अर्थ बताएं -

Ans

✗ 1. उद्देश्य

✗ 2. परोपकार

✓ 3. रुझान या स्वभाव

✗ 4. परिवर्तन

Question ID : **4410091525085**
Option 1 ID : **4410096023537**
Option 2 ID : **4410096023535**
Option 3 ID : **4410096023536**
Option 4 ID : **4410096023534**

Comprehension:

निम्नलिखित गद्यांश के आधार पर प्रश्नों के उत्तर दें -

विज्ञापन से होने वाले **आर्थिक**[1] लाभ के कारण धन लेकर समाचार प्रकाशित करने की **प्रवृति**[2] भी आज कल बढ़ी है। इससे पत्रकारिता के मूल्यों का ह्रास हुआ है। मीडिया को **लोकतंत्र**[3] का चतुर्थ स्तम्भ कहा जाता है। विज्ञापनदाताओं के अनुचित प्रभाव एवं व्यावसायिक लाभ को प्राथमिकता देने के कारण मीडिया के उद्देश्यों पर प्रतिकूल प्रभाव पड़ता है। कई बार यह भी देखने में आता है कि सरकारी विज्ञापनों के लोभ में समाचार-पत्र एवं टीवी चैनल सरकार के विरोध में कुछ प्रकाशित या **प्रसारित**[4] नहीं कर पाते हैं। विज्ञापन से एकाधिकार की प्रवृत्ति का सृजन होता है। माइक्रोसॉफ्ट प्रारंभ से ही यह प्रयास करती रही है कि कंप्यूटर की दुनिया में उसका **एकाधिकार**[5] रहे। इसके लिए वह समय-समय पर विज्ञापनों का भी सहारा लेती है। विज्ञापनों के माध्यम से एकाधिकार की लड़ाई हमेशा माँग में वृद्धि करवाने में सहायक होती है। इस तरह विज्ञापन की दुनिया एक रोचक दुनिया है, जहाँ पैसा है, ग्लैमर है, शोहरत है एवं सफलता की ऊँचाइयाँ हैं।

SubQuestion No : 18

Q.18 रेखांकित शब्द 3 का अर्थ बताएं -

Ans

✗ 1. दुनिया

✗ 2. संसार

✓ 3. जनता का शासन

✗ 4. गरीब लोग

Question ID : **4410091525086**
Option 1 ID : **4410096023540**
Option 2 ID : **4410096023538**
Option 3 ID : **4410096023539**
Option 4 ID : **4410096023541**

Quick Sarkari

Comprehension:

निम्नलिखित गद्यांश के आधार पर प्रश्नों के उत्तर दें -

विज्ञापन से होने वाले **आर्थिक**[1] लाभ के कारण धन लेकर समाचार प्रकाशित करने की **प्रवृति**[2] भी आज कल बढ़ी है। इससे पत्रकारिता के मूल्यों का ह्रास हुआ है। मीडिया को **लोकतंत्र**[3] का चतुर्थ स्तम्भ कहा जाता है। विज्ञापनदाताओं के अनुचित प्रभाव एवं व्यावसायिक लाभ को प्राथमिकता देने के कारण मीडिया के उद्देश्यों पर प्रतिकूल प्रभाव पड़ता है। कई बार यह भी देखने में आता है कि सरकारी विज्ञापनों के लोभ में समाचार-पत्र एवं टीवी चैनल सरकार के विरोध में कुछ प्रकाशित या **प्रसारित**[4] नहीं कर पाते हैं। विज्ञापन से एकाधिकार की प्रवृत्ति का सृजन होता है। माइक्रोसॉफ्ट प्रारंभ से ही यह प्रयास करती रही है कि कंप्यूटर की दुनिया में उसका **एकाधिकार**[5] रहे। इसके लिए वह समय-समय पर विज्ञापनों का भी सहारा लेती है। विज्ञापनों के माध्यम से एकाधिकार की लड़ाई हमेशा माँग में वृद्धि करवाने में सहायक होती है। इस तरह विज्ञापन की दुनिया एक रोचक दुनिया है, जहाँ पैसा है, ग्लैमर है, शोहरत है एवं सफलता की ऊँचाइयाँ हैं।

SubQuestion No : 19

Q.19 रेखांकित शब्द 4 का अर्थ बताएं -

Ans

✗ 1. भेजना

✓ 2. फैलाया हुआ

✗ 3. खोजना

✗ 4. प्रमुख

Question ID : **4410091525087**
Option 1 ID : **4410096023542**
Option 2 ID : **4410096023545**
Option 3 ID : **4410096023544**
Option 4 ID : **4410096023543**

Comprehension:

निम्नलिखित गद्यांश के आधार पर प्रश्नों के उत्तर दें -

विज्ञापन से होने वाले **आर्थिक**[1] लाभ के कारण धन लेकर समाचार प्रकाशित करने की **प्रवृति**[2] भी आज कल बढ़ी है। इससे पत्रकारिता के मूल्यों का ह्रास हुआ है। मीडिया को **लोकतंत्र**[3] का चतुर्थ स्तम्भ कहा जाता है। विज्ञापनदाताओं के अनुचित प्रभाव एवं व्यावसायिक लाभ को प्राथमिकता देने के कारण मीडिया के उद्देश्यों पर प्रतिकूल प्रभाव पड़ता है। कई बार यह भी देखने में आता है कि सरकारी विज्ञापनों के लोभ में समाचार-पत्र एवं टीवी चैनल सरकार के विरोध में कुछ प्रकाशित या **प्रसारित**[4] नहीं कर पाते हैं। विज्ञापन से एकाधिकार की प्रवृत्ति का सृजन होता है। माइक्रोसॉफ्ट प्रारंभ से ही यह प्रयास करती रही है कि कंप्यूटर की दुनिया में उसका **एकाधिकार**[5] रहे। इसके लिए वह समय-समय पर विज्ञापनों का भी सहारा लेती है। विज्ञापनों के माध्यम से एकाधिकार की लड़ाई हमेशा माँग में वृद्धि करवाने में सहायक होती है। इस तरह विज्ञापन की दुनिया एक रोचक दुनिया है, जहाँ पैसा है, ग्लैमर है, शोहरत है एवं सफलता की ऊँचाइयाँ हैं।

SubQuestion No : 20

Q.20 रेखांकित शब्द 5 का अर्थ बताएं -

Ans

✗ 1. कई दलों का अधिकार

✓ 2. एक व्यक्ति या दल का अधिकार

✗ 3. अनेक लोगों के अधिकार

✗ 4. जन समूह का अधिकार

Question ID : **4410091525088**
Option 1 ID : **4410096023547**
Option 2 ID : **4410096023546**
Option 3 ID : **4410096023549**
Option 4 ID : **4410096023548**

Section : **Discipline1**

Q.1 ऑर्नस्टीन और हंकिन्स की पाठ्यपुस्तक "फाउंडेशन्स ऑफ करिकुलम एंड इंस्ट्रक्शन" (Foundations of Curriculum and Instruction) मुख्य रूप से किस पर बल देती है?

Ans
✗ 1. शिक्षार्थी-केंद्रित शिक्षण मॉडलों पर पूर्ण फोकस
✗ 2. शिक्षकों को केवल मानकीकृत परीक्षणों के लिए तैयार करना
✓ 3. पाठ्यक्रम की मूल और वर्तमान विकास को समझना
✗ 4. पाठ्यक्रम विश्लेषण में सैद्धांतिक रूपरेखा को हटाना

Question ID : **4410091543190**
Option 1 ID : **4410096095801**
Option 2 ID : **4410096095802**
Option 3 ID : **4410096095800**
Option 4 ID : **4410096095803**

Q.2 पूर्व-संक्रियात्मक अवस्था की विशिष्ट संज्ञानात्मक उपलब्धि _____ है।

Ans
✗ 1. मानसिक संक्रियाएं
✗ 2. औपचारिक तर्कना
✓ 3. प्रतीकात्मक निरूपण
✗ 4. वस्तु स्थायित्व

Question ID : **4410091570373**
Option 1 ID : **4410096202480**
Option 2 ID : **4410096202478**
Option 3 ID : **4410096202479**
Option 4 ID : **4410096202477**

Q.3 कौन-सा सिद्धांत यह बताता है कि बच्चों में विकास सिर से पैर (head to the toe) की दिशा में होता है?

Ans
✗ 1. प्रॉक्सिमोडिस्टल सिद्धांत (Proximodistal principle)
✗ 2. पारस्परिकता सिद्धांत (Reciprocal principle)
✗ 3. परिपक्वता सिद्धांत (Maturation principle)
✓ 4. सेफलोकाडल सिद्धांत (Cephalocaudal principle)

Question ID : **4410091626302**
Option 1 ID : **4410096423598**
Option 2 ID : **4410096423600**
Option 3 ID : **4410096423599**
Option 4 ID : **4410096423597**

QuickSarkari

Q.4 निम्नलिखित में से कौन-सा विकल्प, पारिवारिक परिवेश द्वारा बच्चे के व्यक्तित्व विकास पर होने वाले प्रभाव को सर्वोत्तम रूप से दर्शाता है?

Ans

✗ 1. यह आनुवंशिक बनावट निर्धारित करता है।

✓ 2. यह मूल्यों, मान्यताओं और सामाजिक व्यवहारों को आकार देता है।

✗ 3. यह केवल शारीरिक वृद्धि को प्रभावित करता है।

✗ 4. यह बुद्धिमत्ता स्तरों को नियंत्रित करता है।

Question ID : **4410091626288**
Option 1 ID : **4410096423541**
Option 2 ID : **4410096423543**
Option 3 ID : **4410096423542**
Option 4 ID : **4410096423544**

Q.5 सकारात्मक और नकारात्मक शांति की अवधारणा में, रियर्डन (Reardon) नकारात्मक शांति को किस प्रकार वर्णित करता है?

Ans

✓ 1. युद्ध या हिंसा के भौतिक रूपों की अनुपस्थिति

✗ 2. एक ऐसी स्थिति जहाँ आर्थिक समानता पूर्ण रूप से प्राप्त हो जाती है

✗ 3. सांस्कृतिक समूहों के बीच सहयोग की उपस्थिति

✗ 4. सहायक सामाजिक संस्थाओं के निर्माण की प्रक्रिया

Question ID : **4410091570658**
Option 1 ID : **4410096203618**
Option 2 ID : **4410096203615**
Option 3 ID : **4410096203616**
Option 4 ID : **4410096203617**

Q.6 In planning physical activities for young children, why is it important to include both gross and fine motor tasks?

Ans

✗ 1. To improve balance and coordination only

✓ 2. To support overall physical development

✗ 3. To enhance communication and language skills

✗ 4. To boost emotional and social growth

Question ID : **4410091622269**
Option 1 ID : **4410096407865**
Option 2 ID : **4410096407864**
Option 3 ID : **4410096407866**
Option 4 ID : **4410096407867**

QuickSarkari.com | WhatsApp Channel | Telegram: t.me/quick_sarkari

Q.7 भारत में वर्ष 1948-49 के विश्वविद्यालय शिक्षा आयोग की अध्यक्षता किसने की?

Ans

✗ 1. डॉ. बी.आर. अम्बेडकर

✗ 2. जवाहरलाल नेहरू

✗ 3. महात्मा गांधी

✓ 4. डॉ. एस. राधाकृष्णन

Question ID : **4410091611297**
Option 1 ID : **4410096364046**
Option 2 ID : **4410096364044**
Option 3 ID : **4410096364045**
Option 4 ID : **4410096364043**

Q.8 विद्यालयों में शांति शिक्षा कार्यक्रम शुरू करने से सामान्यतः किस प्रकार के परिणाम प्राप्त होते हैं?

Ans

✗ 1. भेदभावपूर्ण रवैये और अपवर्जन में वृद्धि

✗ 2. विद्यार्थियों के बीच आपसी सहयोग में कमी

✗ 3. हिंसा में वृद्धि और कक्षा में बार-बार होने वाले झगड़े

✓ 4. धमकाने/बदमाशी की घटनाओं में कमी और विद्यार्थियों के बीच संबंधों में सुधार

Question ID : **4410091543211**
Option 1 ID : **4410096095887**
Option 2 ID : **4410096095886**
Option 3 ID : **4410096095885**
Option 4 ID : **4410096095884**

Q.9 निम्नलिखित में से कौन-सा अभिलक्षण, मुख्य रूप से सामाजिक वर्ग को जाति से अलग करता है?

Ans

✗ 1. वर्ग धार्मिक होता है, जबकि जाति आर्थिक होती है।

✗ 2. जाति हमेशा शहरी होती है, जबकि वर्ग ग्रामीण होता है।

✓ 3. सामाजिक वर्ग समान सामाजिक-आर्थिक स्थिति पर आधारित होता है।

✗ 4. जाति स्वैच्छिक होती है, जबकि वर्ग वंशानुगत होता है।

Question ID : **4410091601701**
Option 1 ID : **4410096326405**
Option 2 ID : **4410096326402**
Option 3 ID : **4410096326403**
Option 4 ID : **4410096326404**

QuickSarkari.com | WhatsApp Channel | Telegram: t.me/quick_sarkari

Q.10 माध्यमिक शिक्षा आयोग (1952-53), जिसे लोकप्रिय रूप से मुदलियार आयोग के नाम से जाना जाता है, ने माध्यमिक स्तर पर शिक्षण-अधिगम पद्धतियों को आकार देने में परीक्षाओं की भूमिका का समीक्षात्मक विश्लेषण किया। परीक्षा-उन्मुख विद्यालयी शिक्षा की सीमाओं को दूर करने के लिए आयोग ने किस सुधार का दृढ़ता पूर्वक पक्ष समर्थन किया?

Ans

✗ 1. मूल्यांकन में एकरूपता सुनिश्चित करने के लिए व्यावहारिक और आंतरिक आकलनों को समाप्त करना

✗ 2. अकादमिक प्रदर्शन को मानकीकृत करने के लिए सार्वजनिक अंतिम परीक्षाओं के प्रभुत्व को बढ़ाना

✓ 3. केवल अंतिम परीक्षाओं के बजाय सतत और विविध आकलन का उपयोग करना

✗ 4. माध्यमिक विद्यालयी शिक्षा के प्रत्येक चरण में वार्षिक उच्च-स्तरीय परीक्षाओं की शुरुआत करना।

Question ID : **4410091628623**
Option 1 ID : **4410096432641**
Option 2 ID : **4410096432639**
Option 3 ID : **4410096432638**
Option 4 ID : **4410096432640**

Q.11 प्रस्तावना के अनुसार, कौन-सा शब्द यह दर्शाता है कि भारतीय राज्य का प्रमुख निर्वाचित होता है न कि वंशानुगत?

Ans

✗ 1. पंथनिरपेक्ष

✓ 2. गणराज्य

✗ 3. लोकतांत्रिक

✗ 4. समाजवादी

Question ID : **4410091679472**
Option 1 ID : **4410096626079**
Option 2 ID : **4410096626078**
Option 3 ID : **4410096626077**
Option 4 ID : **4410096626080**

Q.12 The close emotional bond of affection that develops between infants and their caregivers is called:

Ans

✗ 1. Socialisation of infant in family

✗ 2. Bonding of child with relatives

✓ 3. Attachment between child and caregiver

✗ 4. Emotional trust between infant and parent

Question ID : **4410091570534**
Option 1 ID : **4410096203111**
Option 2 ID : **4410096203110**
Option 3 ID : **4410096203109**
Option 4 ID : **4410096203108**

QuickSarkari

Q.13 भारत में शिक्षा का अधिकार किस संवैधानिक संशोधन द्वारा मौलिक अधिकार बनाया गया?

Ans
✔ 1. 86वां संशोधन
✘ 2. 91वां संशोधन
✘ 3. 73वां संशोधन
✘ 4. 42वां संशोधन

Question ID : **4410091546824**
Option 1 ID : **4410096110165**
Option 2 ID : **4410096110167**
Option 3 ID : **4410096110166**
Option 4 ID : **4410096110164**

Q.14 Social acceptance affects personality development mainly by shaping an individual:

Ans
✔ 1. Self-concept
✘ 2. Physical health
✘ 3. Temperamental style
✘ 4. Intellectual level

Question ID : **4410091630524**
Option 1 ID : **4410096440248**
Option 2 ID : **4410096440247**
Option 3 ID : **4410096440249**
Option 4 ID : **4410096440246**

Q.15 एक विद्यालय माध्यमिक कक्षाओं में कार्य अनुभव और प्रायोगिक क्रियाकलापों को शामिल करता है। यह किस अनुशंसा का अनुसरण करता है?

Ans
✔ 1. मुदालियर आयोग
✘ 2. राधाकृष्णन आयोग
✘ 3. राष्ट्रीय साक्षरता मिशन
✘ 4. NEP 2020

Question ID : **4410091568286**
Option 1 ID : **4410096194430**
Option 2 ID : **4410096194429**
Option 3 ID : **4410096194428**
Option 4 ID : **4410096194431**

Q.16 What is an example of a biological factor affecting personality development?

Ans
✘ 1. Socioeconomic status
✔ 2. Genetic inheritance
✘ 3. Education
✘ 4. Culture

Question ID : **4410091627288**
Option 1 ID : **4410096427439**
Option 2 ID : **4410096427438**
Option 3 ID : **4410096427440**
Option 4 ID : **4410096427441**

QuickSarkari.com | WhatsApp Channel | Telegram: t.me/quick_sarkari

Q.17 **Which principle explains why a child first learns to sit before walking?**

Ans

✗ 1. Development depends on experience

✗ 2. Development occurs continuously

✗ 3. Development varies across individuals

✓ 4. Development is sequential and orderly

Question ID : **4410091631095**
Option 1 ID : **4410096442603**
Option 2 ID : **4410096442604**
Option 3 ID : **4410096442605**
Option 4 ID : **4410096442602**

Q.18 **सतत पाठ्यचर्या सुधारों के माध्यम से शिक्षा को किस सामाजिक विशेषता को प्रतिबिंबित करना चाहिए?**

Ans

✗ 1. सांस्कृतिक विरासत को बनाए रखना

✓ 2. परिवर्ती स्थितियों के अनुकूल होना

✗ 3. स्थायी लोकतांत्रिक दर्शन

✗ 4. मुख्य अंतर्विषय को मानकीकृत करना

Question ID : **4410091557215**
Option 1 ID : **4410096151390**
Option 2 ID : **4410096151391**
Option 3 ID : **4410096151389**
Option 4 ID : **4410096151392**

Q.19 **भारत की बहुभाषी और बहुधार्मिक संरचना उसके समाज को सबसे अधिक किस प्रकार प्रभावित करती है?**

Ans

✗ 1. यह सभी नागरिकों के लिए एकल सांस्कृतिक पहचान बनाती है।

✓ 2. यह सांस्कृतिक विविधता और जटिल सामाजिक अंत:क्रियाओं दोनों को बढ़ावा देती है।

✗ 3. यह समुदायों से सामाजिक पदानुक्रम को समाप्त करती है।

✗ 4. इससे समाज में जाति की भूमिका कम हो जाती है।

Question ID : **4410091624558**
Option 1 ID : **4410096416769**
Option 2 ID : **4410096416767**
Option 3 ID : **4410096416768**
Option 4 ID : **4410096416770**

QuickSarkari.com | WhatsApp Channel | Telegram: t.me/quick_sarkari

Q.20 सार्वभौमिकता की राष्ट्रीय आकांक्षा के आधार पर, वैश्विक नागरिकों के लिए शिक्षा को कौन-सा मुख्य गुण विकसित करने की आवश्यकता है?

Ans

✔ 1. सहकारिता, सहिष्णुता, पारस्परिक विश्वास

✘ 2. विधिक आदेश का सख्ती से अनुपालन

✘ 3. प्रतिस्पर्धात्मक आर्थिक प्रदर्शन

✘ 4. आर्थिक आत्मनिर्भरता लक्ष्य

Question ID : **4410091557222**
Option 1 ID : **4410096151418**
Option 2 ID : **4410096151419**
Option 3 ID : **4410096151420**
Option 4 ID : **4410096151417**

Section : **Discipline2**

Q.1 जब कोई विद्यार्थी कक्षा की लंबाई और चौड़ाई को मीटर में मापता है और फर्श का क्षेत्रफल ज्ञात करने के लिए उन्हें गुणा करता है, तो यहां किस गणितीय अवधारणा का प्रयोग किया जा रहा है?

Ans

✘ 1. क्षेत्रफल के महत्व की उपेक्षा करना

✘ 2. क्षेत्रफल के स्थान पर आयतन का उपयोग करना

✔ 3. क्षेत्रफल की गणना के लिए मानक इकाइयों का उपयोग करना

✘ 4. बिना इकाइयों के यादृच्छिक रूप से मापना

Question ID : **4410091547818**
Option 1 ID : **4410096114105**
Option 2 ID : **4410096114106**
Option 3 ID : **4410096114103**
Option 4 ID : **4410096114104**

Q.2 A regional educational board wants to adapt the curriculum for rural schools with unique cultural backgrounds. Which criterion from the context should guide their curriculum modification?

Ans

✘ 1. Equity and excellence in assessment procedures

✔ 2. Geographical relevance ensuring contextual adaptation

✘ 3. Emphasis on secondary-level subject depth

✘ 4. Alignment with international trends in education

Question ID : **4410091613189**
Option 1 ID : **4410096371590**
Option 2 ID : **4410096371591**
Option 3 ID : **4410096371592**
Option 4 ID : **4410096371593**

QuickSarkari.com | WhatsApp Channel | Telegram: t.me/quick_sarkari

Q.3 व्यक्तियों में आत्मसम्मान का विकास किस प्रकार से होता है?

Ans

✗ 1. यह पूरी तरह से शैक्षणिक या सामाजिक मानकों को पूरा करने पर निर्भर करता है।

✗ 2. यह दूसरों के प्रभाव के बिना केवल व्यक्तिगत उपलब्धियों से विकसित होता है।

✗ 3. यदि सामाजिक अपेक्षाओं को पूरा नहीं किया जाता है तो यह सदैव नकारात्मक होता है।

✓ 4. इसमें तब वृद्धि होती है जब कोई स्वयं को सक्षम और अप्रतिबंधत: स्वीकृत के रूप में देखता है।

Question ID : **4410091572222**
Option 1 ID : **4410096209891**
Option 2 ID : **4410096209890**
Option 3 ID : **4410096209892**
Option 4 ID : **4410096209893**

Q.4 विद्यार्थियों में सहयोग और समूह चेतना (group consciousness) विकसित करने के लिए कौन-सी कक्षागत विधि सबसे उपयुक्त है?

Ans

✗ 1. मौन पठन सत्र

✗ 2. असंरचित अनुमत समय

✗ 3. एकल दत्तकार्य

✓ 4. सहयोग युक्त परियोजना कार्य

Question ID : **4410091619406**
Option 1 ID : **4410096396480**
Option 2 ID : **4410096396483**
Option 3 ID : **4410096396481**
Option 4 ID : **4410096396482**

Q.5 एक शैक्षणिक संस्थान अपनी पाठ्यचर्या में सामाजिक न्याय के प्रति आदर्श व्यक्तित्व (icon) के उपागम को प्रतिबिंबित करना चाहता है। निम्नलिखित में से कौन-सा परिवर्तन इस दृष्टि के सबसे अधिक अनुरूप होगा?

Ans

✗ 1. कक्षागत शिक्षण में विवादास्पद सामाजिक मुद्दों से बचना

✗ 2. सामाजिक न्याय के विषयों को केवल पाठ्यचर्येतर क्लबों के लिए आरक्षित रखना

✓ 3. सभी विषयों के भीतर जाति, जेंडर और समानता पर चर्चा को अंत:स्थापित करना

✗ 4. सामाजिक न्याय को केवल उच्च कक्षाओं में शामिल करना

Question ID : **4410091629252**
Option 1 ID : **4410096435101**
Option 2 ID : **4410096435099**
Option 3 ID : **4410096435098**
Option 4 ID : **4410096435100**

Quick Sarkari

Q.6 **Which domain requires mastery for Gandhi's "Be the change you want to see in the world"?**

Ans

✗ 1. External societal expectations

✗ 2. Personal identity diffusion

✗ 3. Group identification mechanisms

✓ 4. Internal emotional landscape

Question ID : **4410091557290**
Option 1 ID : **4410096151666**
Option 2 ID : **4410096151667**
Option 3 ID : **4410096151669**
Option 4 ID : **4410096151668**

Q.7 **निम्नलिखित में से कौन-सा, कक्षाओं में अनुभवात्मक अधिगम की अवधारणा का सर्वोत्तम वर्णन करता है?**

Ans

✗ 1. अनुभवात्मक अधिगम बिना चर्चा के प्रश्नोत्तरी को हल करना है।

✗ 2. अनुभवात्मक अधिगम केवल पाठ्यपुस्तकों से तथ्यों का स्मरण करना है।

✗ 3. अनुभवात्मक अधिगम शिक्षकों के व्याख्यानों का निष्क्रिय रूप से श्रवण करना है।

✓ 4. यह विद्यार्थियों को प्रत्यक्ष अनुभवों और अनुचिंतन में शामिल करती है।

Question ID : **4410091641457**
Option 1 ID : **4410096482942**
Option 2 ID : **4410096482941**
Option 3 ID : **4410096482940**
Option 4 ID : **4410096482939**

Q.8 **भाषा और गरीबी में क्षेत्रीय भिन्नताओं को दूर करने के लिए, राष्ट्रीय पाठ्यचर्या ढांचा दिशानिर्देश प्रदान करता है, जबकि राज्य अपने स्थानीय संदर्भ के अनुसार सामग्री को अनुकूलित करते हैं। यह किस पाठ्यचर्या विकास उपागम को दर्शाता है?**

Ans

✗ 1. स्थानीय विषयों के साथ एकीकृत उपागम

✓ 2. क्षेत्रीय अनुकूलन के साथ अधोमुखी (Top-Down) उपागम

✗ 3. राष्ट्रीय निरीक्षण के साथ उर्ध्वमुखी (Bottom-Up) उपागम

✗ 4. समान विषय-वस्तु के साथ सक्षमता-आधारित उपागम

Question ID : **4410091683123**
Option 1 ID : **4410096639600**
Option 2 ID : **4410096639598**
Option 3 ID : **4410096639599**
Option 4 ID : **4410096639601**

Q.9 विद्यालय प्रदर्शनी के लिए विद्यार्थियों को तैयार करते समय, एक शिक्षक भूमिका-निर्वाह क्रियाकलापों का आयोजन करता है जहां शिक्षार्थियों को बातचीत करनी होती है, निर्णय लेने होते हैं और अपनी आवश्यकताओं को व्यक्त करना होता है। इस उपागम से भाषा के किस कार्य को प्रत्यक्ष रूप से सहायता मिलती है?

Ans

✗ 1. प्रत्यक्ष शिक्षण के माध्यम से सांस्कृतिक मूल्यों को लागू करना

✓ 2. बातचीत और निर्णयन जैसे जीवन कौशल विकसित करना

✗ 3. अनुदेशों के माध्यम से कक्षा में अनुशासन स्थापित करना

✗ 4. असाइनमेंट पढ़ने के लिए भाषा के उपयोग को सीमित करना

Question ID : **4410091683516**
Option 1 ID : **4410096640992**
Option 2 ID : **4410096640990**
Option 3 ID : **4410096640991**
Option 4 ID : **4410096640993**

Q.10 कक्षागत अभ्यासों में भाषा अधिगम में साहित्य की भूमिका को कौन-सा उपागम सर्वोत्तम रूप से अभिलक्षित करता है?

Ans

✗ 1. प्रवाह में सुधार के लिए केवल व्याकरण अभ्यास पर ध्यान केंद्रित करना।

✓ 2. समीक्षात्मक चिंतन कौशल विकसित करने के लिए कहानियों/कविताओं का उपयोग करना।

✗ 3. साहित्यिक शब्दावली को कंठस्थ करने पर निर्भर रहना।

✗ 4. तथ्यात्मक जानकारी को प्राथमिकता देने के लिए साहित्य को छोड़ना।

Question ID : **4410091631459**
Option 1 ID : **4410096444053**
Option 2 ID : **4410096444052**
Option 3 ID : **4410096444054**
Option 4 ID : **4410096444055**

Q.11 निम्नलिखित में से कौन-सा, शब्द 'पेडागॉगी (pedagogy)' की व्युत्पत्ति-मूलक उत्पत्ति है?

Ans

✗ 1. फ्रांसीसी शब्द 'éducation'

✓ 2. ग्रीक शब्द 'paidagōgeō'

✗ 3. लैटिन शब्द 'educatio'

✗ 4. जर्मन शब्द 'Bildung'

Question ID : **4410091653595**
Option 1 ID : **4410096529720**
Option 2 ID : **4410096529718**
Option 3 ID : **4410096529719**
Option 4 ID : **4410096529721**

QuickSarkari.com | WhatsApp Channel | Telegram: t.me/quick_sarkari

Q.12 During a group project, a team initially struggles with conflict and resistance as members debate their individual roles and responsibilities. Over time, the group develops shared norms and cohesion, leading to effective collaboration and goal achievement. According to group development models, which sequence accurately describes this group's behavioral progression?

Ans
✗ 1. Norming, Forming, Performing, Storming
✗ 2. Storming, Forming, Performing, Norming
✓ 3. Forming, Storming, Norming, Performing
✗ 4. Forming, Norming, Storming, Performing

Question ID : **4410091613233**
Option 1 ID : **4410096371769**
Option 2 ID : **4410096371768**
Option 3 ID : **4410096371767**
Option 4 ID : **4410096371766**

Q.13 आकलन स्रोत (assessment source) के रूप में प्रेक्षण, _____ के आकलन के लिए विशेष रूप से उपयोगी है।

Ans
✓ 1. कक्षा व्यवहार
✗ 2. पाठ्यपुस्तक की विषयवस्तु को स्मरण करने
✗ 3. वस्तुनिष्ठ उत्तरों की सटीकता
✗ 4. लिखित अनुक्रिया की गति

Question ID : **4410091580124**
Option 1 ID : **4410096241821**
Option 2 ID : **4410096241819**
Option 3 ID : **4410096241822**
Option 4 ID : **4410096241820**

Q.14 समूह में सहयोग करते समय, प्रभावी टीम वर्क (teamwork) को बढ़ावा देने वाली एक सामान्य व्यवहारिक प्रथा क्या है?

Ans
✗ 1. नियंत्रण के लिए प्रतिस्पर्धा करना और पारस्परिक संघर्ष उत्पन्न करना
✗ 2. चर्चाओं पर हावी होना और भिन्न मतों को खारिज करना
✗ 3. संलग्नता से पीछे हटना और टीम में सहभागिता से बचना
✓ 4. विचारों को खुलकर साझा करना और साथी सदस्यों को ध्यान से सुनना

Question ID : **4410091543231**
Option 1 ID : **4410096095967**
Option 2 ID : **4410096095965**
Option 3 ID : **4410096095966**
Option 4 ID : **4410096095964**

QuickSarkari.com | WhatsApp Channel | Telegram: t.me/quick_sarkari

Q.15 निम्नलिखित में से कौन-सी कक्षा रणनीति, अनुभवात्मक अधिगम को सर्वोत्तम रूप से दर्शाती है?

Ans

✗ 1. विद्यार्थी प्रक्रियाओं का स्मरण करते हैं और लिखित परीक्षाओं में उन्हें पुनः प्रस्तुत करते हैं

✓ 2. विद्यार्थी एक छोटा सा अन्वेषण तैयार करते हैं और उसे संचालित करते हैं, फिर परिणामों पर सविमर्श करते हैं

✗ 3. शिक्षक विस्तृत व्याख्यानों और प्रदर्शनों के माध्यम से अवधारणाओं की व्याख्या करते हैं

✗ 4. शिक्षक पाठ्यपुस्तक के प्रश्न देते हैं और फिर लिखित सारांश प्रस्तुत करने के लिए अनुसरण करते हैं

Question ID : **4410091632971**
Option 1 ID : **4410096450004**
Option 2 ID : **4410096450002**
Option 3 ID : **4410096450003**
Option 4 ID : **4410096450005**

Q.16 चॉम्स्की के सिद्धांत के अनुसार, भाषा अधिग्रहण उपकरण (LAD) की क्या भूमिका होती है?

Ans

✓ 1. यह एक अन्तर्जात प्रणाली प्रदान करता है जो शिक्षार्थियों को भाषा नियमों के बारे में परिकल्पना बनाने में सक्षम बनाता है।

✗ 2. यह सुनिश्चित करता है कि भाषा अधिगम केवल औपचारिक अनुदेशों के माध्यम से हो।

✗ 3. यह शिक्षार्थियों को वयस्क भाषण को सटीक रूप से अनुकरण करने में मदद करता है।

✗ 4. यह उन सभी शब्दावली और व्याकरण नियमों को संग्रहीत करता है जिनकी एक बच्चे को आवश्यकता होती है।

Question ID : **4410091576595**
Option 1 ID : **4410096227188**
Option 2 ID : **4410096227190**
Option 3 ID : **4410096227187**
Option 4 ID : **4410096227189**

Q.17 कौन-सा प्रमुख लाभ, सहपाठी अनुशिक्षण कार्यक्रमों से संबंधित है?

Ans

✗ 1. विद्यार्थी के निष्क्रिय व्यवहार में वृद्धि करना

✗ 2. सहपाठी अंतःक्रिया और संचार को सीमित करना

✗ 3. शिक्षक-नेतृत्व वाले पाठों को पूरी तरह से प्रतिस्थापित करना

✓ 4. शैक्षिक उपलब्धि और सामाजिक कौशल में सुधार करना

Question ID : **4410091553939**
Option 1 ID : **4410096138424**
Option 2 ID : **4410096138425**
Option 3 ID : **4410096138423**
Option 4 ID : **4410096138422**

Q.18 बहुभाषावाद की एक प्रमुख विशेषता यह है कि भाषा प्रवीणता _____ ।

Ans

✗ 1. सामाजिक उपयोग से स्वतंत्र होती है

✗ 2. जीवन भर स्थिर रहती है

✗ 3. सभी भाषाओं में एकसमान होती है

✓ 4. असमान और संदर्भ-निर्भर होती है

Question ID : **4410091578894**
Option 1 ID : **4410096236675**
Option 2 ID : **4410096236674**
Option 3 ID : **4410096236672**
Option 4 ID : **4410096236673**

Q.19 शिक्षक के लिए पाठ-योजना का मुख्य उद्देश्य क्या होता है?

Ans

✗ 1. केवल गृहकार्य देना

✗ 2. कक्षा को सजाना

✗ 3. विद्यार्थियों के ग्रेड दर्ज करना

✓ 4. शिक्षण उद्देश्यों को प्राप्त करने में सहायता करना

Question ID : **4410091611757**
Option 1 ID : **4410096365870**
Option 2 ID : **4410096365869**
Option 3 ID : **4410096365867**
Option 4 ID : **4410096365868**

Q.20 निम्नलिखित में से कौन-सा विकल्प, बच्चों में भाषा अधिग्रहण का सर्वोत्तम वर्णन करता है?

Ans

✓ 1. बच्चे बिना औपचारिक पाठों के स्वाभाविक रूप से अपनी मूल भाषा अधिग्रहित करते हैं।

✗ 2. भाषा अधिग्रहण केवल माता-पिता के प्रत्यक्ष अनुदेशन से ही संभव है।

✗ 3. बच्चे औपचारिक स्कूली शिक्षा में प्रवेश करने के बाद ही भाषा अधिगम शुरू करते हैं।

✗ 4. भाषा अधिग्रहण के लिए बच्चों को औपचारिक कक्षा पाठों की आवश्यकता होती है।

Question ID : **4410091620216**
Option 1 ID : **4410096399696**
Option 2 ID : **4410096399698**
Option 3 ID : **4410096399697**
Option 4 ID : **4410096399695**

Section : **Discipline3**

Q.1 **A Grade 2 teacher initiates a lesson on volume by having students estimate the capacity of various jugs by filling them with cups of water. This activity is primarily designed to facilitate which mode of cognitive representation, as proposed by Bruner?**

Ans

✗ 1. Abstract language application

✗ 2. Iconic imagery development

✓ 3. Enactive learning strategy

✗ 4. Symbolic manipulation phase

Question ID : **4410091558541**
Option 1 ID : **4410096156559**
Option 2 ID : **4410096156558**
Option 3 ID : **4410096156560**
Option 4 ID : **4410096156557**

QuickSarkari.com | WhatsApp Channel | Telegram: t.me/quick_sarkari

Q.2 **What does 'appropriateness' in writing primarily refer to?**

Ans

✔ 1. Using the right words in the right context

✘ 2. Writing grammatically correct sentences only

✘ 3. Using complex vocabulary

✘ 4. Writing lengthy sentences

Question ID : **4410091612277**
Option 1 ID : **4410096367953**
Option 2 ID : **4410096367952**
Option 3 ID : **4410096367951**
Option 4 ID : **4410096367954**

Q.3 **The idea of whether a language use is considered "right" or "wrong" is generally:**

Ans

✘ 1. Fixed and universally applicable

✔ 2. Determined by social and contextual norms

✘ 3. Independent of usage and context

✘ 4. Completely defined by grammar books

Question ID : **4410091572404**
Option 1 ID : **4410096210589**
Option 2 ID : **4410096210588**
Option 3 ID : **4410096210591**
Option 4 ID : **4410096210590**

Q.4 **शिक्षकों की नैतिक भूमिका अन्य पेशेवरों की नैतिक भूमिका से किस प्रकार भिन्न होती है?**

Ans

✘ 1. शिक्षकों को अपने अधिकार के माध्यम से नैतिकता को प्रवर्तित करना होता है

✘ 2. शिक्षकों को बिना किसी औचित्य के निर्णय लेने होते हैं

✘ 3. शिक्षकों को कक्षाओं में नैतिक निर्णयों से बचना होता है

✔ 4. शिक्षकों को सार्वजनिक रूप से नैतिक निर्णयों का औचित्य सिद्ध करना होता है

Question ID : **4410091601977**
Option 1 ID : **4410096327505**
Option 2 ID : **4410096327504**
Option 3 ID : **4410096327503**
Option 4 ID : **4410096327502**

Q.5 **In a classroom, a teacher repeatedly pairs a particular sound with handing out homework. Over time, students react to the sound with disappointment even before homework is given. Which learning theory best explains this scenario?**

Ans

✘ 1. Trial and Error

✘ 2. Operant Conditioning

✘ 3. Observational Learning

✔ 4. Classical Conditioning

Question ID : **4410091629850**
Option 1 ID : **4410096437485**
Option 2 ID : **4410096437487**
Option 3 ID : **4410096437488**
Option 4 ID : **4410096437486**

Q.6 टेलीविजन विज्ञापनों के बार-बार संपर्क में आने से बच्चों पर संभावित दीर्घकालिक प्रभाव क्या हो सकता है?

Ans

✗ 1. बच्चे अपने सहपाठियों से कम प्रभावित होने लगते हैं।

✗ 2. बच्चे कोई भी टेलीविजन देखने से इनकार कर सकते हैं।

✗ 3. बच्चे सदैव घर के बने उत्पादों को ही पसंद करते हैं।

✓ 4. बच्चे भौतिकवादी मूल्यों को आत्मसात कर सकते हैं।

Question ID : **4410091635621**
Option 1 ID : **4410096460505**
Option 2 ID : **4410096460504**
Option 3 ID : **4410096460506**
Option 4 ID : **4410096460503**

Q.7 स्कूल में डांट खाने के बाद परेशान बच्चा घर आकर अपने छोटे भाई-बहन पर चिल्लाने लगता है। यह किसका उदाहरण है?

Ans

✗ 1. प्रक्षेपण (Projection)

✓ 2. विस्थापन (Displacement)

✗ 3. दमन (Repression)

✗ 4. प्रतिक्रिया-निर्मिति (Reaction formation)

Question ID : **4410091548330**
Option 1 ID : **4410096116029**
Option 2 ID : **4410096116030**
Option 3 ID : **4410096116031**
Option 4 ID : **4410096116032**

Q.8 Which teacher behaviors make students more attentive and develop a positive attitude toward learning?

Ans

✓ 1. Warmth and enthusiasm

✗ 2. Strict disciplinary rules

✗ 3. Frequent and random testing

✗ 4. Excessive and difficult homework

Question ID : **4410091685515**
Option 1 ID : **4410096648956**
Option 2 ID : **4410096648955**
Option 3 ID : **4410096648954**
Option 4 ID : **4410096648957**

QuickSarkari.com | WhatsApp Channel | Telegram: t.me/quick_sarkari

Q.9 एक विद्यालय प्रशासक देखता है कि जैसे ही छुट्टी की घंटी बजती है, विद्यार्थी स्वतः ही जाने की तैयारी करने लगते हैं, भले ही शिक्षक अपना पाठ जारी रखे। इस व्यवहार के लिए कौन-सी प्रक्रिया मुख्य रूप से उत्तरदायी है?

Ans
✗ 1. संज्ञानात्मक मानचित्रण (Cognitive Mapping)
✗ 2. प्रयत्न-त्रुटि अधिगम (Trial and Error Learning)
✗ 3. क्रियाप्रसूत अनुकूलन (Operant Conditioning)
✓ 4. क्लासिकी अनुकूलन (Classical Conditioning)

Question ID : **4410091629800**
Option 1 ID : **4410096437288**
Option 2 ID : **4410096437285**
Option 3 ID : **4410096437286**
Option 4 ID : **4410096437287**

Q.10 विद्यालय का नेतृत्व करते समय विद्यालय प्रशासक का प्राथमिक उत्तरदायित्व क्या होता है?

Ans
✗ 1. शिक्षकों के लिए पाठ योजनाएं बनाना
✓ 2. यह सुनिश्चित करना कि विद्यालय की नीतियों को प्रभावी रूप से लागू किया जाए
✗ 3. विद्यार्थियों के असाइनमेंट का श्रेणीकरण करना
✗ 4. सामुदायिक समारोह का आयोजन करना

Question ID : **4410091611197**
Option 1 ID : **4410096363644**
Option 2 ID : **4410096363643**
Option 3 ID : **4410096363645**
Option 4 ID : **4410096363646**

Q.11 एक शिक्षक ने नोटिस किया कि कुछ विद्यार्थी गणित की कक्षा में सहभागिता से डरते हैं। इस समस्या के समाधान के लिए शिक्षक को किस उद्देश्य पर फोकस करना चाहिए?

Ans
✓ 1. विद्यार्थियों के आत्मविश्वास को बढ़ाने
✗ 2. केवल परीक्षणों पर फोकस करने
✗ 3. अतिरिक्त गृहकार्य असाइन करने
✗ 4. समस्या को अनदेखा करने

Question ID : **4410091695030**
Option 1 ID : **4410096686189**
Option 2 ID : **4410096686192**
Option 3 ID : **4410096686190**
Option 4 ID : **4410096686191**

QuickSarkari

Q.12 Which sentence shows correct subject-verb agreement?

Ans

✗ 1. The teachers explains the lesson clearly to all the students.

✗ 2. The teacher explain the lesson clearly to all the students.

✗ 3. The teachers explaining the lesson clearly to all the students.

✓ 4. The teacher explains the lesson clearly to all the students.

Question ID : **4410091546265**
Option 1 ID : **4410096107917**
Option 2 ID : **4410096107916**
Option 3 ID : **4410096107918**
Option 4 ID : **4410096107915**

Q.13 विद्यालयों में प्रशासनिक नेतृत्व का मुख्य कार्य क्या है?

Ans

✓ 1. नीति कार्यान्वयन

✗ 2. कर्मचारी भर्ती

✗ 3. कक्षा शिक्षण

✗ 4. पाठ्यचर्या अभिकल्प

Question ID : **4410091631467**
Option 1 ID : **4410096444076**
Option 2 ID : **4410096444077**
Option 3 ID : **4410096444079**
Option 4 ID : **4410096444078**

Q.14 अभिभावक-शिक्षक बैठक के दौरान, एक माँ बताती है कि घरेलू कार्यों के कारण उसकी बेटी अतिरिक्त कक्षाओं में नहीं जा सकती, जबकि उसका बेटा बाहरी खेलों में भाग लेता है। इस परिदृश्य में कौन-सा व्यापक सामाजिक मुद्दा परिलक्षित होता है?

Ans

✗ 1. खेल सुविधाओं तक पहुंच

✗ 2. निजी स्कूली शिक्षा को प्राथमिकता

✓ 3. अवैतनिक और सवैतनिक श्रम का लैंगिक विभाजन

✗ 4. अकादमिक विषयों पर अत्यधिक बल

Question ID : **4410091616415**
Option 1 ID : **4410096384582**
Option 2 ID : **4410096384585**
Option 3 ID : **4410096384584**
Option 4 ID : **4410096384583**

QuickSarkari.com | WhatsApp Channel | Telegram: t.me/quick_sarkari

Q.15 **What is a key reason that the needs for learning English are not uniform among learners in India?**

Ans

✔ 1. Society is vast and heterogeneous

✘ 2. Teachers use the same textbook everywhere

✘ 3. English is the only language spoken

✘ 4. All students have the same background

Question ID : **4410091602662**
Option 1 ID : **4410096330221**
Option 2 ID : **4410096330220**
Option 3 ID : **4410096330223**
Option 4 ID : **4410096330222**

Q.16 **According to Piaget, mathematical knowledge is primarily acquired through:**

Ans

✘ 1. Verbal transmission by the teacher

✔ 2. Active interaction with the environment

✘ 3. Imitation of demonstrated procedures

✘ 4. Reinforcement of correct responses

Question ID : **4410091580737**
Option 1 ID : **4410096244282**
Option 2 ID : **4410096244284**
Option 3 ID : **4410096244285**
Option 4 ID : **4410096244283**

Q.17 **नीचे दिए गए अभिकथन (A) और कारण (R) को पढ़िए और सही विकल्प का चयन कीजिए।**

अभिकथन (A): पियाजे के अनुसार, पूर्व-संक्रियात्मक अवस्था में बच्चों में प्रायः अहंकेंद्रित चिंतन पाया जाता है।
कारण (R): अहंकेंद्रित चिंतन से तात्पर्य है कि बच्चा स्थितियों को अन्यों के दृष्टिकोण से समझने में असमर्थ है।

Ans

✘ 1. अभिकथन सही है, कारण गलत है

✘ 2. अभिकथन गलत है, कारण सही है

✘ 3. अभिकथन और कारण दोनों ही सही हैं लेकिन कारण, अभिकथन की व्याख्या नहीं करता है।

✔ 4. अभिकथन और कारण दोनों ही सही हैं तथा कारण, अभिकथन की व्याख्या करता है।

Question ID : **4410091609322**
Option 1 ID : **4410096356214**
Option 2 ID : **4410096356215**
Option 3 ID : **4410096356213**
Option 4 ID : **4410096356212**

QuickSarkari.com | WhatsApp Channel | Telegram: t.me/quick_sarkari

Q.18 एक शिक्षक विद्यार्थियों पर व्यावसायिक विज्ञापनों के प्रभाव को संतुलित करना चाहता है। इस स्थिति में विद्यालय स्तर पर कौन-सा हस्तक्षेपी व्यवधान सबसे उपयुक्त होगा?

Ans

✔ 1. वाणिज्यिक अतिरेकों का प्रतिकार करने के लिए शैक्षिक PSA प्रसारित करना

✘ 2. विद्यार्थियों को पुरस्कार के रूप में विज्ञापित उत्पादों को खरीदने के लिए प्रोत्साहित करना

✘ 3. पाठ्यक्रम में विज्ञापनों से संबंधित चर्चाओं को सीमित करना

✘ 4. विद्यार्थियों के लिए प्रतिदिन TV देखने का समय बढ़ाना

Question ID : **4410091632966**
Option 1 ID : **4410096449982**
Option 2 ID : **4410096449984**
Option 3 ID : **4410096449985**
Option 4 ID : **4410096449983**

Q.19 विद्यालय संस्कृति के निर्माण के संबंध में आधुनिक शैक्षिक विमर्श में, शिक्षक की पेशेवर पहचान का प्राथमिक आधार कौन-सा अवयव है?

Ans

✘ 1. शारीरिक स्वरूप (Physical appearance)

✘ 2. प्रशासनिक रैंक (Administrative rank)

✘ 3. कक्षाकक्ष वास्तुकला (Classroom architecture)

✔ 4. विश्वास और मूल्य (Beliefs and values)

Question ID : **4410091634696**
Option 1 ID : **4410096456870**
Option 2 ID : **4410096456869**
Option 3 ID : **4410096456867**
Option 4 ID : **4410096456868**

Q.20 टेलीविजन विज्ञापन बच्चों के खरीदारी व्यवहार को किस प्रकार प्रभावित करते हैं?

Ans

✘ 1. वे उत्पादों में बच्चों की रुचि को कम करते हैं।

✘ 2. वे बच्चों को टी.वी. देखने से रोकते हैं।

✔ 3. वे बच्चों को उत्पाद खरीदने और उनका उपभोग करने के लिए प्रेरित करते हैं।

✘ 4. वे बच्चों को उत्पादों की अनदेखी करने के लिए प्रेरित करते हैं।

Question ID : **4410091608025**
Option 1 ID : **4410096351039**
Option 2 ID : **4410096351038**
Option 3 ID : **4410096351037**
Option 4 ID : **4410096351036**

Section : **Discipline4**

Q.1 EVS की कक्षा में, विद्यार्थी चर्चा करते हैं कि उनके परिवार के सदस्य घर पर विभिन्न कार्य कैसे करते हैं और फिर इसे प्रकृति में पशुओं की भूमिकाओं से जोड़ते हैं। यहाँ किस EVS थीम और कौशल को समेकित किया जा रहा है?

Ans

✗ 1. यात्रा थीम और परिचर्चा कौशल

✗ 2. भोजन थीम और रिकॉर्डिंग कौशल

✗ 3. निवासस्थल थीम और प्रयोग कौशल

✓ 4. परिवार/मित्र थीम और प्रेक्षण कौशल

Question ID : **4410091617196**
Option 1 ID : **4410096387686**
Option 2 ID : **4410096387685**
Option 3 ID : **4410096387684**
Option 4 ID : **4410096387683**

Q.2 प्राथमिक शिक्षा में पर्यावरण अध्ययन के दोहरे फोकस को निम्नलिखित में से कौन-सा विकल्प सर्वोत्तम रूप से दर्शाता है?

Ans

✓ 1. प्राकृतिक और सामाजिक वातावरण को समझना

✗ 2. केवल शहरी विकास पर फोकस करना

✗ 3. केवल रटने वाले अधिगम को बढ़ावा देना

✗ 4. केवल वैज्ञानिक शब्दावली को याद रखना

Question ID : **4410091638657**
Option 1 ID : **4410096472472**
Option 2 ID : **4410096472474**
Option 3 ID : **4410096472475**
Option 4 ID : **4410096472473**

Q.3 निम्नलिखित में से कौन-सा कथन शिक्षा में सामाजिक विज्ञान की प्रकृति का सर्वोत्तम वर्णन करता है?

Ans

✗ 1. यह मुख्यतः वर्णनात्मक है और केवल ऐतिहासिक तथ्यों को रिकॉर्ड करता है।

✓ 2. यह कला और विज्ञान दोनों है, जो सृजनात्मक अंतर्दृष्टि को व्यवस्थित जांच के साथ संयुक्त करता है।

✗ 3. यह केवल सरकार और अर्थव्यवस्था जैसे सामाजिक संस्थानों का अध्ययन करता है।

✗ 4. यह वैयक्तिक व्यवहार की उपेक्षा करता है और पूरी तरह से सामूहिक प्रवृत्तियों पर ध्यान केंद्रित करता है।

Question ID : **4410091550980**
Option 1 ID : **4410096126179**
Option 2 ID : **4410096126180**
Option 3 ID : **4410096126181**
Option 4 ID : **4410096126182**

Q.4 एक ऐच्छिक शैक्षिक पाठ्यक्रम में, एक शिक्षक विद्यार्थियों को विद्यालय में बिजली की बचत हेतु एक परियोजना तैयार करने के लिए कहता है। यह मुक्तोत्तर (open-ended) समस्याओं की कौन-सी विशेषता की सर्वोत्तम रूप से व्याख्या करता है?

Ans

✗ 1. यह प्राप्तांकन में रूब्रिक्स (rubrics) की आवश्यकता का विलोपन करता है।

✗ 2. यह उत्तरों को केवल एक सही विकल्प तक सीमित करता है।

✓ 3. यह मौलिकता और सर्जनात्मक चिंतन को बढ़ावा देता है।

✗ 4. इसमें स्मृति से केवल तथ्यात्मक पुन:स्मरण की आवश्यकता होती है।

Question ID : **4410091609055**
Option 1 ID : **4410096355138**
Option 2 ID : **4410096355139**
Option 3 ID : **4410096355136**
Option 4 ID : **4410096355137**

Q.5 यदि कोई विद्यालय वास्तविक जीवन के प्रयोजनों के लिए अंग्रेजी का उपयोग करने की विद्यार्थियों की क्षमता में सुधार करना चाहता है, तो उनके भाषा शिक्षण का मार्गदर्शन किस सिद्धांत द्वारा किया जाना चाहिए?

Ans

✗ 1. अंग्रेजी साहित्य के इतिहास पर ध्यान केंद्रित करना

✓ 2. संप्रेषण के लिए अंग्रेजी का उपयोग

✗ 3. शब्दावली के स्मरणीकरण पर बल देना

✗ 4. बच्चे के लिए सख्त अनुवाद अभ्यास

Question ID : **4410091624740**
Option 1 ID : **4410096417494**
Option 2 ID : **4410096417493**
Option 3 ID : **4410096417491**
Option 4 ID : **4410096417492**

Q.6 निम्नलिखित में से कौन-सी उदारीकरण की नीति की एक मुख्य विशेषता नहीं है?

Ans

✓ 1. पूर्ति के लिए कोई अवसर प्रदान न करना

✗ 2. सरकारी नियंत्रण में कमी और निजी उद्यमों को स्वतंत्रता

✗ 3. निजी उद्यमों के लिए पूंजी बाजार खोलना

✗ 4. लाइसेंसिंग नीति का सरलीकरण

Question ID : **4410091548239**
Option 1 ID : **4410096115671**
Option 2 ID : **4410096115669**
Option 3 ID : **4410096115672**
Option 4 ID : **4410096115670**

QuickSarkari

Q.7 किस संगठन ने पर्यावरण शिक्षा में शिक्षक प्रशिक्षण को 'प्रायोरिटी ऑफ़ प्रायोरिटीज़ (Priority of Priorities')' के रूप में वर्णित किया है?

Ans
✗ 1. भारत का उच्चतम न्यायालय
✓ 2. UNESCO
✗ 3. MOEF
✗ 4. NCERT

Question ID : **4410091608414**
Option 1 ID : **4410096352571**
Option 2 ID : **4410096352568**
Option 3 ID : **4410096352569**
Option 4 ID : **4410096352570**

Q.8 एक व्यावसायिक विकास सत्र के दौरान, शिक्षक विद्यार्थियों की बड़ी संख्या वाली कक्षाओं में मुक्तोत्तर प्रश्नों के उत्तर देने में लगने वाले समय की ग्रेडिंग संबंधी चुनौती पर चर्चा करते हैं। मूल्यांकन की गुणवत्ता के अनुरक्षण हेतु प्रभावी समाधान क्या है?

Ans
✗ 1. दक्षता के लिए केवल बहुविकल्पीय प्रश्नों का उपयोग करना
✗ 2. केवल सहपाठियों द्वारा उत्तरों की ग्रेडिंग की अनुमति देना
✓ 3. प्रारंभिक मूल्यांकन के लिए कंप्यूटर-सहायता प्राप्त स्कोरिंग उपकरणों का उपयोग करना
✗ 4. मुक्तोत्तर प्रश्नों की संख्या को न्यूनतम करना

Question ID : **4410091633252**
Option 1 ID : **4410096451123**
Option 2 ID : **4410096451125**
Option 3 ID : **4410096451124**
Option 4 ID : **4410096451122**

Q.9 निम्नलिखित में से कौन-सी, नेतृत्व से संबंधित एक प्रभावी विद्यालय की विशेषता है?

Ans
✗ 1. केवल प्रधानाचार्य द्वारा केंद्रीकृत निर्णयन
✓ 2. साझा दृष्टि और सहभागी नेतृत्व अभ्यास
✗ 3. केवल प्रशासनिक कार्यों तक सीमित नेतृत्व
✗ 4. शिक्षक की भागीदारी के बिना नियमों का सख्ती से पालन

Question ID : **4410091638969**
Option 1 ID : **4410096473433**
Option 2 ID : **4410096473434**
Option 3 ID : **4410096473436**
Option 4 ID : **4410096473435**

QuickSarkari.com | WhatsApp Channel | Telegram: t.me/quick_sarkari

Q.10 निम्नलिखित में से कौन-सा, लेखन के आकलन के लिए एक चरण नहीं है?

Ans

✗ 1. एक ऐसा कार्य डिजाइन करना जो शिक्षार्थियों को कौशल और ज्ञान प्रदर्शित करने का अवसर देता है।

✗ 2. कौशल और ज्ञान में महारत का आकलन करने के लिए स्पष्ट मानदंड निर्धारित करना।

✗ 3. उन कौशलों और ज्ञान को सूचीबद्ध करना जिन्हें शिक्षार्थियों को कार्य से प्राप्त करना चाहिए।

✓ 4. विभिन्न स्थितियों के लिए विविध आकलन मानदंड बनाना।

Question ID : **4410091548177**
Option 1 ID : **4410096115422**
Option 2 ID : **4410096115423**
Option 3 ID : **4410096115421**
Option 4 ID : **4410096115424**

Q.11 Which of the following is NOT a characteristic of microteaching?

Ans

✗ 1. Practicing one teaching skill at a time

✓ 2. Emphasizing full-length lesson delivery

✗ 3. Using feedback from peers and supervisors

✗ 4. Reducing class size to 5–10 students

Question ID : **4410091572467**
Option 1 ID : **4410096210801**
Option 2 ID : **4410096210800**
Option 3 ID : **4410096210803**
Option 4 ID : **4410096210802**

Q.12 When a school wants to foster inclusive education for children with disabilities, what is the most effective way for the school to engage both the community and support organizations like NGOs and the PTA?

Ans

✗ 1. The school holds parent meetings on inclusion without external support groups

✓ 2. The school works with the PTA for awareness and NGOs for professional training

✗ 3. The NGO independently provides teacher training without school collaboration

✗ 4. The PTA independently conducts workshops for parents on disability inclusion

Question ID : **4410091681746**
Option 1 ID : **4410096634359**
Option 2 ID : **4410096634358**
Option 3 ID : **4410096634361**
Option 4 ID : **4410096634360**

Q.13 What is a key effect of privatization on the accessibility of education in society?

Ans

✓ 1. Increase in private schools

✗ 2. Universal free education

✗ 3. Mandatory government funding

✗ 4. Decrease in fees

Question ID : **4410091635557**
Option 1 ID : **4410096460247**
Option 2 ID : **4410096460248**
Option 3 ID : **4410096460250**
Option 4 ID : **4410096460249**

Q.14 प्रशासनिक नेतृत्व, अनुदेशनात्मक नेतृत्व से मुख्य रूप से _____ के कारण अलग होता है।

Ans
✗ 1. विद्यार्थियों के अधिगम प्रतिफल पर अपनी विशेष चिंता
✓ 2. संगठनात्मक प्रणालियों और प्रक्रियाओं पर अपने बल
✗ 3. सहयोगात्मक पहलों और प्रैक्टिस को अस्वीकार करने
✗ 4. कक्षाकक्ष शिक्षण, अधिगम और परीक्षाओं पर अपने फोकस

Question ID : **4410091583181**
Option 1 ID : **4410096254072**
Option 2 ID : **4410096254073**
Option 3 ID : **4410096254075**
Option 4 ID : **4410096254074**

Q.15 विद्यार्थी लेखन में सामान्यतः आकलन किया जाने वाला एक प्रमुख घटक निम्नलिखित में से कौन-सा है?

Ans
✗ 1. वाक्य निर्माण की गति
✓ 2. संगठन और सुसंगतता
✗ 3. दुर्लभ शब्दावली मदों का उपयोग
✗ 4. लिखित उत्तर की लंबाई

Question ID : **4410091584202**
Option 1 ID : **4410096258116**
Option 2 ID : **4410096258115**
Option 3 ID : **4410096258118**
Option 4 ID : **4410096258117**

Q.16 शैक्षिक मूल्यांकन में मुक्तोत्तर प्रश्नों की एक प्रमुख विशेषता क्या है?

Ans
✗ 1. इनका केवल एक सही उत्तर होता है।
✓ 2. इनमें एक से अधिक संभावित उत्तर हो सकते हैं।
✗ 3. ये केवल तथ्यात्मक स्मरण का परीक्षण करते हैं।
✗ 4. इनमें केवल हां या ना में उत्तर देने होते हैं।

Question ID : **4410091616339**
Option 1 ID : **4410096384279**
Option 2 ID : **4410096384281**
Option 3 ID : **4410096384280**
Option 4 ID : **4410096384278**

Q.17 निम्नलिखित में से कौन-सा विकल्प, प्राथमिक स्तर पर पर्यावरण अध्ययन के शिक्षण हेतु एक प्रभावी उपागम को सटीक रूप से प्रतिबिंबित करता है?

Ans
✗ 1. प्रायोगिक संलग्नता के बिना विषय-वस्तु को पाठ्यपुस्तक ज्ञान तक सीमित करना
✗ 2. रटन अधिगम पर जोर देने के साथ शिक्षक-केंद्रित व्याख्यान
✗ 3. पर्यावरण संबंधी तथ्यों को याद करने पर ही पूरा फोकस करना
✓ 4. बच्चों में जिज्ञासा और जीवन कौशल विकसित करने के लिए बाल-केंद्रित गतिविधियाँ

Question ID : **4410091579629**
Option 1 ID : **4410096239819**
Option 2 ID : **4410096239817**
Option 3 ID : **4410096239820**
Option 4 ID : **4410096239818**

Q.18 तीन सप्ताह की इकाई योजना में, एक शिक्षक पहले सप्ताह में ऑडियो इनपुट के साथ अंत्यानुप्रास का परिचय देता है, दूसरे सप्ताह में एक इंटरैक्टिव वोकेब्लरी ऐप का उपयोग करता है और तीसरे सप्ताह में एक परियोजना कार्य का आयोजन करता है जिसमें विद्यार्थियों संवाद रिकॉर्ड करते हैं। यह अनुक्रम ICT आधारित सामग्री विकास के किस सिद्धांत को प्रदर्शित करता है?

Ans

✗ 1. सभी सप्ताहों के लिए वीडियो संसाधनों का विशेष उपयोग

✗ 2. अनुक्रम के बिना डिजिटल गतिविधियों का यादृच्छिक चयन

✓ 3. विभिन्न ICT प्रारूपों के माध्यम से प्रगामी कौशल निर्माण

✗ 4. अधिगम के लिए केवल मूल्यांकन उपकरणों पर ध्यान केंद्रण

Question ID : **4410091633214**
Option 1 ID : **4410096450971**
Option 2 ID : **4410096450970**
Option 3 ID : **4410096450973**
Option 4 ID : **4410096450972**

Q.19 एक शिक्षक एक इकाई (Unit) को पढ़ाने से पहले उद्देश्यों, गतिविधियों और आकलनों को व्यवस्थित करता है। यह क्या है?

Ans

✗ 1. अनुदेशात्मक तात्कालिक व्यवस्था

✗ 2. रचनात्मक मूल्यांकन अभिकल्प

✓ 3. इकाई/पाठ योजना

✗ 4. पाठ्यचर्या संव्यवहार

Question ID : **4410091570084**
Option 1 ID : **4410096201337**
Option 2 ID : **4410096201340**
Option 3 ID : **4410096201339**
Option 4 ID : **4410096201338**

Q.20 At the school level, the primary aim of Social Studies is to:

Ans

✗ 1. Ensure mastery of academic research methods

✓ 2. Prepare learners for responsible citizenship

✗ 3. Train students as professional social scientists

✗ 4. Promote memorisation of historical facts

Question ID : **4410091584477**
Option 1 ID : **4410096259146**
Option 2 ID : **4410096259144**
Option 3 ID : **4410096259143**
Option 4 ID : **4410096259145**

Section : **Discipline5**

QuickSarkari.com | WhatsApp Channel | Telegram: t.me/quick_sarkari

Q.1 **निम्नलिखित में से कौन-सा परिदृश्य, शैक्षिक व्यवस्थापन (educational setting) में जेंडर समावेशन को सर्वोत्तम रूप से दर्शाता है?**

Ans

✗ 1. समान नीतिगत प्रावधानों के बावजूद, नेतृत्व की भूमिकाओं पर अनौपचारिक रूप से एक ही जेंडर का प्रभुत्व रहता है।

✓ 2. लड़कियों और लड़कों को शैक्षणिक और सह-पाठ्यचारी क्रियाकलापों में नेतृत्व की भूमिका निभाने के लिए प्रोत्साहित किया जाता है।

✗ 3. नेतृत्व के अवसर प्रदान किए जाते हैं, लेकिन भागीदारी मौजूदा जेंडर-आधारित प्रदर्शन पैटर्न पर निर्भर करती है।

✗ 4. पारंपरिक जेंडर मानदंडों का सम्मान करने के लिए लड़कियों और लड़कों को अलग-अलग नेतृत्व की भूमिकाएँ सौंपी जाती हैं।

Question ID : **4410091638145**
Option 1 ID : **4410096470191**
Option 2 ID : **4410096470188**
Option 3 ID : **4410096470190**
Option 4 ID : **4410096470189**

Q.2 **शिक्षार्थियों को व्यावहारिक अनुभव प्रदान करने के बावजूद प्रयोगशाला पद्धति को शिक्षक-केंद्रित क्यों माना जाता है?**

Ans

✗ 1. क्योंकि यह शिक्षार्थियों को प्रेरित करता है और आनंद में वृद्धि करता है।

✗ 2. क्योंकि यह प्रयोगों के माध्यम से सामाजिक कौशल और संवेगात्मक अभिवृत्तियों को विकसित करता है।

✗ 3. क्योंकि शिक्षार्थी शिक्षकों के अनुदेशों के बिना समूहों में या अलग-अलग कार्य करते हैं।

✓ 4. क्योंकि शिक्षार्थी पूरी तरह से शिक्षक या प्रयोग पुस्तिका द्वारा निर्देशित अनुदेशों का अनुसरण करते हैं।

Question ID : **4410091581964**
Option 1 ID : **4410096249097**
Option 2 ID : **4410096249098**
Option 3 ID : **4410096249095**
Option 4 ID : **4410096249096**

Q.3 **विद्यार्थियों में भाषा अधिगम का मूल्यांकन करने के लिए निम्नलिखित में से कौन-सी सामान्य तकनीक है?**

Ans

✗ 1. विद्यार्थियों को बिना रिकॉर्ड के पाठ छोड़ने की अनुमति देना

✗ 2. बिना प्रतिपुष्टि के केवल गृहकार्य देना

✓ 3. मौखिक परीक्षा, लिखित परीक्षा और अवलोकन का उपयोग करना

✗ 4. विद्यार्थियों को बिना मूल्यांकन के खामोशी से पढ़ने के लिए कहना

Question ID : **4410091551038**
Option 1 ID : **4410096126398**
Option 2 ID : **4410096126396**
Option 3 ID : **4410096126395**
Option 4 ID : **4410096126397**

QuickSarkari

Q.4 एक वैध निगमनात्मक तर्क (deductive argument) का निष्कर्ष किस गुण द्वारा पहचाना जाता है?

Ans

✗ 1. अनंतिम स्वीकृति (Provisional acceptance)

✗ 2. उच्च प्रसंभाव्यता (High probability)

✗ 3. आनुभविक सत्यापन (Empirical verification)

✓ 4. पूर्ण निश्चितता (Absolute certainty)

Question ID : **4410091551433**
Option 1 ID : **4410096128121**
Option 2 ID : **4410096128119**
Option 3 ID : **4410096128122**
Option 4 ID : **4410096128120**

Q.5 A student shows strengths in reasoning but has trouble copying from the board and organizing written work. This pattern indicates:

Ans

✗ 1. Lack of classroom discipline

✓ 2. A learning disability affecting written expression

✗ 3. Hearing impairment

✗ 4. Complete intellectual disability

Question ID : **4410091570302**
Option 1 ID : **4410096202195**
Option 2 ID : **4410096202193**
Option 3 ID : **4410096202196**
Option 4 ID : **4410096202194**

Q.6 वृत्तांत अभिलेख को किस प्रकार से सटीक रूप से वर्णित किया जा सकता है?

Ans

✓ 1. क्रियान्वित विद्यार्थी का शब्द चित्र

✗ 2. विद्यार्थी व्यवहार का संख्यात्मक श्रेणी निर्धारण

✗ 3. सही और गलत अनुक्रियाओं की सूची

✗ 4. मानकीकृत परीक्षण रिपोर्ट

Question ID : **4410091572483**
Option 1 ID : **4410096210861**
Option 2 ID : **4410096210860**
Option 3 ID : **4410096210862**
Option 4 ID : **4410096210863**

QuickSarkari.com | WhatsApp Channel | Telegram: t.me/quick_sarkari

Q.7 निम्नलिखित में से कौन-सा कथन, गणितीय अवधारणाओं के निर्माण की प्रक्रिया का सटीक वर्णन करता है?

Ans

✗ 1. गणितीय अवधारणाएँ उन विशिष्ट वस्तुओं से संबंधित रहती हैं जिनसे उन्हें सीखा जाता है।

✓ 2. गणितीय अवधारणाएँ मूर्त अनुभवों से प्राप्त की जाती हैं और यह संबंधित अमूर्त विचारों को उत्पन्न कर सकती हैं।

✗ 3. गणितीय अवधारणाएँ केवल वस्तुओं की गणना और माप से संबंधित होती हैं।

✗ 4. गणितीय अवधारणाओं को वास्तविक वस्तुओं के संदर्भ के बिना पाठ्यपुस्तकों से याद किया जाता है।

Question ID : **4410091581910**
Option 1 ID : **4410096248884**
Option 2 ID : **4410096248882**
Option 3 ID : **4410096248883**
Option 4 ID : **4410096248881**

Q.8 If a teacher education institution is planning a curriculum to address the needs of the most prevalent SEDG in India, which group should it focus on?

Ans

✓ 1. Other Backward Classes (OBCs)

✗ 2. Scheduled Castes

✗ 3. Muslims

✗ 4. Scheduled Tribes

Question ID : **4410091609799**
Option 1 ID : **4410096358108**
Option 2 ID : **4410096358109**
Option 3 ID : **4410096358110**
Option 4 ID : **4410096358111**

Q.9 एक विद्यार्थी प्रायः लापरवाह रहता है, बहु-चरणों वाले अनुदेश का पालन करने में असमर्थ रहता है और कार्यों को पूरा करने में कठिनाई महसूस करता है। शिक्षक को किस स्थिति का संदेह होने की सर्वाधिक संभावना है?

Ans

✗ 1. दृष्टि दोष (Visual impairment)

✓ 2. ADHD

✗ 3. डिस्केल्कुलिया (Dyscalculia)

✗ 4. डिस्ग्राफिया (Dysgraphia)

Question ID : **4410091693273**
Option 1 ID : **4410096679226**
Option 2 ID : **4410096679224**
Option 3 ID : **4410096679225**
Option 4 ID : **4410096679223**

QuickSarkari.com | WhatsApp Channel | Telegram: t.me/quick_sarkari

Q.10 रचनावाद किस प्रकार शिक्षार्थियों को गहन बोध विकसित करने का सुझाव देता है?

Ans

✔ 1. अनुभवों और अनुचिंतन के माध्यम से सक्रिय रूप से ज्ञान का निर्माण करके

✘ 2. शिक्षक द्वारा प्रसारित जानकारी को निष्क्रिय रूप से प्राप्त करके

✘ 3. संप्रत्ययों पर प्रश्न किए बिना निश्चित प्रक्रियाओं का अनुसरण करके

✘ 4. पुनरावृत्त अभ्यास और पुन:स्मरण के माध्यम से तथ्यों को याद करके

Question ID : **4410091609487**
Option 1 ID : **4410096356861**
Option 2 ID : **4410096356860**
Option 3 ID : **4410096356863**
Option 4 ID : **4410096356862**

Q.11 What does the term 'gender' primarily refer to in educational discussions?

Ans

✘ 1. Biology

✘ 2. Ethnicity

✘ 3. Age

✔ 4. Social roles

Question ID : **4410091633796**
Option 1 ID : **4410096453274**
Option 2 ID : **4410096453277**
Option 3 ID : **4410096453276**
Option 4 ID : **4410096453275**

Q.12 A teacher plays a short story audio for students, then asks them to retell it in their own words and discuss the main ideas in groups. Which LSRW skills are being primarily developed in this activity?

Ans

✘ 1. Grammar and Vocabulary

✘ 2. Only Writing

✘ 3. Reading and Writing

✔ 4. Listening and Speaking

Question ID : **4410091553633**
Option 1 ID : **4410096137206**
Option 2 ID : **4410096137205**
Option 3 ID : **4410096137204**
Option 4 ID : **4410096137203**

Q.13 कौन-सा संज्ञानात्मक प्रगमन विभिन्न सुस्पष्ट चार भुजाओं वाली वस्तुओं के प्रेक्षण से लेकर "चतुर्भुज" की अमूर्त श्रेणी को परिभाषित करने तक के संक्रमण का सटीक वर्णन करता है?

Ans

✔ 1. विशिष्ट से सामान्य

✘ 2. मूर्त से प्रतीकात्मक

✘ 3. प्रक्रियात्मक से संकल्पनात्मक

✘ 4. प्रेरणिक से निगमनिक

Question ID : **4410091605549**
Option 1 ID : **4410096341253**
Option 2 ID : **4410096341252**
Option 3 ID : **4410096341254**
Option 4 ID : **4410096341255**

Quick Sarkari

Q.14 निम्नलिखित में से कौन-सा, भारतीय शिक्षा में मुख्यतः देखे जाने वाला बहिष्करण का एक रूप है?

Ans

✗ 1. विद्यार्थियों में विभिन्न सांस्कृतिक उत्सव मनाना

✗ 2. सभी विद्यार्थियों को छात्रवृत्ति प्रदान करना

✗ 3. अनुदेश के लिए स्थानीय भाषाओं का उपयोग करना

✓ 4. दिव्यांग बच्चों को नियमित विद्यालयों में प्रवेश न देना

Question ID : **4410091624252**
Option 1 ID : **4410096415570**
Option 2 ID : **4410096415568**
Option 3 ID : **4410096415569**
Option 4 ID : **4410096415567**

Q.15 असमानता का एक मुख्य उदाहरण निम्नलिखित में से कौन-सा है?

Ans

✓ 1. महिलाओं को समान कार्य के लिए कम वेतन प्राप्त होना

✗ 2. लड़कियों को प्रसूति अवकाश का लाभ मिलना

✗ 3. पुरुषों में परित्याग स्तर (dropout level) अधिक होना

✗ 4. लड़कों का युवा लड़कियों की तुलना में कम पढ़ाई करना

Question ID : **4410091572508**
Option 1 ID : **4410096210962**
Option 2 ID : **4410096210963**
Option 3 ID : **4410096210961**
Option 4 ID : **4410096210960**

Q.16 विज्ञान के एक शिक्षक ने सूर्य की रोशनी में कई पौधों की तेजी से वृद्धि का अवलोकन किया और निष्कर्ष निकाला कि सूर्य की रोशनी पौधों की वृद्धि में सहायक है। यह किस तर्क का उदाहरण है?

Ans

✗ 1. अनुरूप तर्क (Analogical reasoning)

✗ 2. चक्रीय तर्क (Circular reasoning)

✓ 3. आगमनात्मक तर्क (Inductive reasoning)

✗ 4. निगमनात्मक तर्क (Deductive reasoning)

Question ID : **4410091640291**
Option 1 ID : **4410096478368**
Option 2 ID : **4410096478369**
Option 3 ID : **4410096478366**
Option 4 ID : **4410096478367**

Q.17 पूर्ण संख्याओं के संदर्भ में शून्य का मान क्या है?

Ans

✗ 1. अभाज्य संख्या (Prime number)

✗ 2. भाज्य संख्या (Composite number)

✗ 3. ऋणात्मक संख्या (Negative number)

✓ 4. उदासीन अवयव (Neutral element)

Question ID : **4410091633763**
Option 1 ID : **4410096453144**
Option 2 ID : **4410096453145**
Option 3 ID : **4410096453142**
Option 4 ID : **4410096453143**

Q.18 विश्वविद्यालय के भाषा कार्यक्रम का उद्देश्य विद्यार्थियों की निरंतर प्रगति की निगरानी करना और उसके अनुसार अनुदेशन को अनुकूलित करना है। इस उद्देश्य को प्राप्त करने के लिए कौन-सी आकलन रणनीति सबसे प्रभावी होगी?

Ans

✗ 1. वार्षिक मानकीकृत परीक्षणों का प्रबंध करना

✗ 2. एकल योगात्मक मौखिक परीक्षा आयोजित करना

✗ 3. अंतिम ग्रेड के लिए समकक्षी-आकलन का उपयोग करना

✓ 4. रचनात्मक पोर्टफोलियो आकलन को अपनाना

Question ID : **4410091615369**
Option 1 ID : **4410096380354**
Option 2 ID : **4410096380355**
Option 3 ID : **4410096380356**
Option 4 ID : **4410096380353**

Q.19 A teacher presents a rule: 'Water boils at 100°C at sea level.' She asks students to predict if water will boil at 100°C in the classroom located at sea level. Which reasoning approach is involved?

Ans

✗ 1. Inductive reasoning from class experiments

✗ 2. Emotional reasoning to share experiences

✗ 3. Intuitive reasoning based on feelings

✓ 4. Deductive reasoning to test a rule in context

Question ID : **4410091609287**
Option 1 ID : **4410096356072**
Option 2 ID : **4410096356074**
Option 3 ID : **4410096356075**
Option 4 ID : **4410096356073**

Q.20 निम्नलिखित में से विशेष आवश्यकता वाले बच्चों में सामान्यतः देखी जाने वाली अधिगम कठिनाई का एक उदाहरण कौन-सा है?

Ans

✗ 1. दमा (Asthma)

✗ 2. अंधापन (Blindness)

✓ 3. अपपठन (Dyslexia)

✗ 4. स्वलीनता (Autism)

Question ID : **4410091624262**
Option 1 ID : **4410096415610**
Option 2 ID : **4410096415609**
Option 3 ID : **4410096415608**
Option 4 ID : **4410096415607**

"

QuickSarkari

Quick Sarkari

Thank you for studying with QuickSarkari!

Get the latest Sarkari Naukri notifications, admit cards, results, answer keys and free previous-year papers first - follow us on WhatsApp and Telegram.

Visit www.quicksarkari.com

Join our WhatsApp Channel

https://whatsapp.com/channel/0029VaxxbrREquiPoXTWM229

Join our Telegram Channel

https://t.me/quick_sarkari

Share this PDF with your friends preparing for DSSSB exams.