Quick Sarkari

DSSSB PREVIOUS YEAR PAPER WITH ANSWER KEY

DSSSB Assistant Teacher (Primary) – PRT

18 February 2026 · Shift 3

डीएसएसएसबी सहायक अध्यापक (प्राथमिक) – PRT – 18 फरवरी 2026, शिफ्ट 3 का प्रश्न पत्र, उत्तर कुंजी सहित

200	120 min	1 / −0.25	EN + HI
Questions / प्रश्न	Duration / समय	Marks per Q / अंक	Language / भाषा

Sections: General Intelligence and Reasoning Ability, General Awareness, Arithmetical and Numerical Ability, English Language and Comprehension, Hindi Language and Comprehension, Assistant Teacher (Primary) – PRT

INSIDE THIS PDF / इस PDF में

Question Paper in English + Hindi with Answer Key (correct option marked in green) + answer table — Page 2–49
प्रश्न पत्र अंग्रेज़ी + हिंदी में, उत्तर कुंजी सहित (सही विकल्प हरे रंग में) + उत्तर तालिका

Official DSSSB Response Sheet with Answer Key (correct option ticked in green) — Page 50–116
आधिकारिक DSSSB रिस्पॉन्स शीट, उत्तर कुंजी सहित (सही विकल्प हरे टिक से)

HOW TO USE THIS PAPER / इस पेपर का उपयोग कैसे करें

1. Attempt the paper first as a timed online mock test (link below).
   पहले नीचे दिए लिंक से इसे टाइमर के साथ ऑनलाइन मॉक टेस्ट के रूप में हल करें।
2. Check your score, section-wise analysis and solutions online.
   ऑनलाइन अपना स्कोर, खंड-वार विश्लेषण और हल देखें।
3. Use this PDF for revision. Correct answers are shown in green.
   दोहराने के लिए इस PDF का उपयोग करें। सही उत्तर हरे रंग में दिए गए हैं।

Attempt this paper as a FREE online mock test

इस पेपर को फ्री ऑनलाइन मॉक टेस्ट के रूप में हल करें – टाइमर, स्कोर और हल के साथ

https://quicksarkari.com/dsssb-assistant-teacher-primary-18-february-2026-shift-3-mock-test/

All DSSSB Assistant Teacher (Primary) – PRT papers and mock tests: **quicksarkari.com/dsssb-mock-test/#assistant-teacher-primary**

Join WhatsApp Channel

Join Telegram Channel

DSSSB Assistant Teacher (Primary) – PRT – Question Paper (English + Hindi)

DSSSB सहायक अध्यापक (प्राथमिक) – PRT – प्रश्न पत्र (अंग्रेज़ी + हिंदी)

Exam held on 18 February 2026, Shift 3 · 200 questions · correct answers marked ✔ in green
परीक्षा तिथि 18 फरवरी 2026, शिफ्ट 3 · 200 प्रश्न · सही उत्तर हरे रंग में ✔ से चिह्नित

> The official paper for this shift was in English. The Hindi version of each question is a translation prepared by QuickSarkari; the language-section questions are shown as asked.
> इस शिफ्ट का आधिकारिक प्रश्न पत्र अंग्रेज़ी में था। प्रत्येक प्रश्न का हिंदी संस्करण QuickSarkari द्वारा तैयार किया गया अनुवाद है; भाषा खंड के प्रश्न मूल रूप में दिए गए हैं।

General Intelligence and Reasoning Ability

Q.1 In a row of people all facing North, Zoha is 25th from the right end. Piya is 34th from the right end. Piya is exactly between Zoha and Minal. If Minal is 6th from the left end of the row, how many people are there in the row?

उत्तर की ओर मुख करके खड़े व्यक्तियों की एक पंक्ति में, ज़ोहा दाएँ छोर से 25वें स्थान पर है। पिया दाएँ छोर से 34वें स्थान पर है। पिया, ज़ोहा और मिनल के ठीक बीच में है। यदि मिनल पंक्ति के बाएँ छोर से 6वें स्थान पर है, तो पंक्ति में कितने व्यक्ति हैं?

(1) 48 ✔
(2) 46
(3) 52
(4) 50

QuickSarkari

Q.2 If the water source is placed along M-N, as shows in the figure, which of the given options will be the water reflection of the given figure?

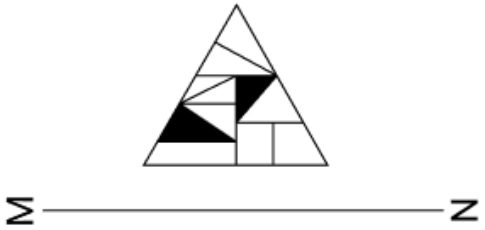

यदि जल स्रोत को आकृति में दर्शाए अनुसार M-N पर रखा जाए, तो दिए गए विकल्पों में से कौन-सी आकृति दी गई आकृति का जल प्रतिबिंब होगी?

(1) 

(2) 

(3) 

(4) 

✔

Q.3 A is the sister of B. B is the son of C. C is married to D. D is the daughter of E. E is the wife of F. G is the brother of D. How is F related to A?

A, B की बहन है। B, C का पुत्र है। C का विवाह D से हुआ है। D, E की पुत्री है। E, F की पत्नी है। G, D का भाई है। F का A से क्या संबंध है?

(1) Father / पिता

(2) Wife's father / पत्नी के पिता

(3) Father's brother / पिता के भाई

(4) **Mother's father / माता के पिता ✔**

QuickSarkari.com | WhatsApp Channel | Telegram: t.me/quick_sarkari

Q.4 This question is based on the five, three-digit numbers given below.
(Left) 471 496 687 492 678 (Right)
(Example- 697 – First digit = 6, second digit = 9 and third digit = 7)
NOTE - All operations to be done from left to right.
What will be the resultant if the second digit of the highest number is added to the second digit of the lowest number?

यह प्रश्न नीचे दी गई तीन अंकों वाली पाँच संख्याओं पर आधारित है।
(बाएँ) 471 496 687 492 678 (दाएँ)
(उदाहरण- 697 – पहला अंक = 6, दूसरा अंक = 9 और तीसरा अंक = 7)
नोट - सभी संक्रियाएँ बाएँ से दाएँ की जानी हैं।
यदि सबसे बड़ी संख्या के दूसरे अंक को सबसे छोटी संख्या के दूसरे अंक में जोड़ा जाए, तो परिणाम क्या होगा?

(1) 15 ✔
(2) 17
(3) 13
(4) 14

Q.5 In a certain code language, 'WIRE' is coded as '5421' and 'PERI' is coded as '2745'. What is the code for 'P' in the given code language?

एक निश्चित कूट भाषा में, 'WIRE' को '5421' लिखा जाता है और 'PERI' को '2745' लिखा जाता है।
दी गई कूट भाषा में 'P' के लिए कूट क्या है?

(1) 7 ✔
(2) 4
(3) 2
(4) 5

Q.6 Refer to the following letter series and answer the question. (Counting to be done from left to right only)
(Left) E B J E R A J N I D U R N L U H L T R (Right)
How many such consonants are there each of which is immediately preceded by a vowel and also immediately followed by a vowel?

निम्नलिखित अक्षर श्रृंखला का संदर्भ लें और प्रश्न का उत्तर दें। (गिनती केवल बाएँ से दाएँ की जानी है)
(बाएँ) E B J E R A J N I D U R N L U H L T R (दाएँ)
ऐसे कितने व्यंजन हैं जिनमें से प्रत्येक के ठीक पहले एक स्वर है और ठीक बाद में भी एक स्वर है?

(1) 2 ✔
(2) 4
(3) 3
(4) 1

Q.7 If 'A' stands for '÷' , 'B' stands for '×', 'C' stands for '+' and 'D' stands for '-' , what will be come in place of question mark '?' in the following equation?
36 B 3 C 18 D 16 A 2=?

यदि 'A' का अर्थ '÷', 'B' का अर्थ '×', 'C' का अर्थ '+' और 'D' का अर्थ '-' है, तो निम्नलिखित समीकरण में प्रश्न चिह्न '?' के स्थान पर क्या आएगा?
36 B 3 C 18 D 16 A 2=?

(1) 118 ✔
(2) 119
(3) 121
(4) 120

Q.8 Based on the English alphabetical order, three of the following four letter-cluster pairs are alike in a certain way and thus form a group. Which is the one that does not belong to that group?
(Note: The odd one out is not based on the number of consonants/vowels or their position in the letter cluster.)
अंग्रेज़ी वर्णमाला क्रम के आधार पर, निम्नलिखित चार अक्षर-समूह युग्मों में से तीन किसी निश्चित प्रकार से एक समान हैं और इस प्रकार एक समूह बनाते हैं। वह कौन-सा युग्म है जो उस समूह से संबंधित नहीं है?
(नोट: असंगत युग्म, अक्षर-समूह में व्यंजनों/स्वरों की संख्या या उनके स्थान पर आधारित नहीं है।)

(1) TV - WY
(2) KM - NP
(3) CE - GI ✔
(4) HJ - KM

Q.9 Each vowel in the word AWAITING is changed to the letter immediately preceding it in the English alphabetical order and each consonant is changed to the letter immediately following it in the English alphabetical order. Which of the following letters will appear exactly twice in the new group of letters thus formed?
शब्द AWAITING में प्रत्येक स्वर को अंग्रेज़ी वर्णमाला क्रम में उसके ठीक पहले वाले अक्षर से बदल दिया जाता है और प्रत्येक व्यंजन को अंग्रेज़ी वर्णमाला क्रम में उसके ठीक बाद वाले अक्षर से बदल दिया जाता है। इस प्रकार बने अक्षरों के नए समूह में निम्नलिखित में से कौन-सा अक्षर ठीक दो बार आएगा?

(1) Z ✔
(2) U
(3) X
(4) H

Q.10 In a row of 39 people facing the north. Lavanya sits 17th from the left end. If Rajat sits 5th to the right of Lavanya, what is Rajat's position from the right end of the line?
उत्तर की ओर मुख करके बैठे 39 व्यक्तियों की एक पंक्ति में, लावण्या बाएँ छोर से 17वें स्थान पर बैठी है। यदि रजत, लावण्या के दाएँ 5वें स्थान पर बैठा है, तो पंक्ति के दाएँ छोर से रजत का स्थान क्या है?

(1) 18th / 18वाँ ✔
(2) 22nd / 22वाँ
(3) 21st / 21वाँ
(4) 19th / 19वाँ

Q.11 If the water source is placed along X-Y, as shown in the figure, which of the given options will be the water reflection of the given figure?

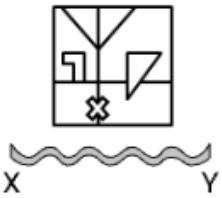

यदि जल स्रोत को आकृति में दर्शाए अनुसार X-Y पर रखा जाए, तो दिए गए विकल्पों में से कौन-सी आकृति दी गई आकृति का जल प्रतिबिंब होगी?

(1) 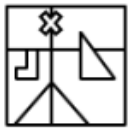 ✔

(2) 

(3) 

(4) 

Q.12 16 is related to 63 following a certain logic. Following the same logic, 28 is related to 99. To which of the following is 12 related to, following the same logic? (NOTE : Operations should be performed on the whole numbers, without breaking down the numbers into its constituent digits. E.g. 13 – Operations on 13 such as adding / subtracting /multiplying etc. to 13 can be performed. Breaking down 13 into 1 and 3 and then performing mathematical operations on 1 and 3 is not allowed.)

एक निश्चित तर्क का अनुसरण करते हुए 16 का संबंध 63 से है। उसी तर्क का अनुसरण करते हुए 28 का संबंध 99 से है। उसी तर्क का अनुसरण करते हुए 12 का संबंध निम्नलिखित में से किससे है? (नोट :
संक्रियाएँ पूर्ण संख्याओं पर की जानी चाहिए, संख्याओं को उनके घटक अंकों में विभाजित किए बिना। उदाहरण- 13 – 13 पर संक्रियाएँ जैसे 13 में जोड़ना/घटाना/गुणा करना आदि की जा सकती हैं। 13 को 1 और 3 में विभाजित करना और फिर 1 और 3 पर गणितीय संक्रियाएँ करना वर्जित है।)

(1) 76

(2) **51** ✔

(3) 77

(4) 73

QuickSarkari.com | WhatsApp Channel | Telegram: t.me/quick_sarkari

Q.13 Refer to the following letter series and answer the question that follows. Counting to be done from left to right only.
(Left) R N R Y V I F E D H I T O J U E D S A B S I H R S A C (Right)
How many such vowels are there each of which is immediately preceded by a consonant and also immediately followed by a vowel?

निम्नलिखित अक्षर श्रृंखला का संदर्भ लें और उसके बाद दिए गए प्रश्न का उत्तर दें। गिनती केवल बाएँ से दाएँ की जानी है।
(बाएँ) R N R Y V I F E D H I T O J U E D S A B S I H R S A C (दाएँ)
ऐसे कितने स्वर हैं जिनमें से प्रत्येक के ठीक पहले एक व्यंजन है और ठीक बाद में एक स्वर है?

(1) One / एक ✔
(2) Two / दो
(3) None / कोई नहीं
(4) Three / तीन

Q.14 In the following triads, each group of letters is related to the subsequent one following a certain logic. Select from the given options, the one which follows the same logic.
TRUE - RUTE - EURT WASH - ASWH - HSAW

निम्नलिखित त्रिकों में, अक्षरों का प्रत्येक समूह एक निश्चित तर्क का अनुसरण करते हुए अगले समूह से संबंधित है। दिए गए विकल्पों में से उस विकल्प का चयन करें जो उसी तर्क का अनुसरण करता है।
TRUE - RUTE - EURT WASH - ASWH - HSAW

(1) SWAN - SAWN - NAWS
(2) LIFT - IFLT - TFIL ✔
(3) CURB - URCB - URBC
(4) PAST - APST - TASP

Q.15 Based on the English alphabetical order, three of the following four letter-cluster pairs are alike in a certain way and thus form a group. Which letter-cluster pair DOES NOT belong to that group?
(Note: The odd one out is not based on the number of consonants/vowels or their position in the letter-cluster.)

अंग्रेज़ी वर्णमाला क्रम के आधार पर, निम्नलिखित चार अक्षर-समूह युग्मों में से तीन किसी निश्चित प्रकार से एक समान हैं और इस प्रकार एक समूह बनाते हैं। कौन-सा अक्षर-समूह युग्म उस समूह से संबंधित नहीं है?
(नोट: असंगत युग्म, अक्षर-समूह में व्यंजनों/स्वरों की संख्या या उनके स्थान पर आधारित नहीं है।)

(1) IB-EG
(2) TM-PS ✔
(3) QJ-MO
(4) NG-JL

Q.16 Seven people, D, A, N, U, B, E and S are sitting in a row, facing north. No one sits to the right of S. Only three people sit between S and B. Only two people sit between B and A. E sits third to the left of D. U sits to the immediate right of D. How many people sit between N and A?

सात व्यक्ति D, A, N, U, B, E और S उत्तर की ओर मुख करके एक पंक्ति में बैठे हैं। S के दाईं ओर कोई नहीं बैठा है। S और B के बीच केवल तीन व्यक्ति बैठे हैं। B और A के बीच केवल दो व्यक्ति बैठे हैं। E, D के बाएँ से तीसरे स्थान पर बैठा है। U, D के ठीक दाएँ बैठा है। N और A के बीच कितने व्यक्ति बैठे हैं?

(1) Two / दो
(2) Three / तीन ✔
(3) Four / चार
(4) One / एक

Q.17 Each of the digits in the number 6543127 is arranged in ascending order from left to right. What will be the sum of the digits which are second from the left and second from the right in the new number thus formed?

संख्या 6543127 के प्रत्येक अंक को बाएँ से दाएँ आरोही क्रम में व्यवस्थित किया जाता है। इस प्रकार बनी नई संख्या में बाएँ से दूसरे और दाएँ से दूसरे अंकों का योग क्या होगा?

(1) 8 ✔
(2) 3
(3) 5
(4) 7

Q.18 What should come in place of ? in the given series based on the English alphabetical order?
BEW HKC NQI TWO ?

अंग्रेज़ी वर्णमाला क्रम के आधार पर दी गई श्रृंखला में ? के स्थान पर क्या आना चाहिए?
BEW HKC NQI TWO ?

(1) ZCD
(2) ZUC
(3) ZDC
(4) ZCU ✔

Q.19 T, A, R, G, U and S live on six different floors of the same building. The lowermost floor in the building is numbered 1, the floor above it is numbered 2 and so on till the topmost floor is numbered 6. S lives on the floor numbered 4. Only two people live between S and G. Only T lives between S and U. A lives immediately below S. Who lives on floor number 2?

T, A, R, G, U और S एक ही इमारत की छह अलग-अलग मंज़िलों पर रहते हैं। इमारत की सबसे निचली मंज़िल की संख्या 1 है, उसके ऊपर की मंज़िल की संख्या 2 है और इसी प्रकार सबसे ऊपरी मंज़िल की संख्या 6 है। S मंज़िल संख्या 4 पर रहता है। S और G के बीच केवल दो व्यक्ति रहते हैं। S और U के बीच केवल T रहता है। A, S के ठीक नीचे रहता है।
मंज़िल संख्या 2 पर कौन रहता है?

(1) U
(2) S
(3) T
(4) R ✔

Q.20 What should come in place of '?' in the given series?
149 161 178 200 227 ?

दी गई श्रृंखला में '?' के स्थान पर क्या आना चाहिए?
149 161 178 200 227 ?

(1) 261
(2) 255
(3) 259 ✔
(4) 264

General Awareness

Q.21 Which of the following Mughal emperors abolished the Jizya tax for the first time?
निम्नलिखित में से किस मुगल सम्राट ने पहली बार जज़िया कर समाप्त किया था?

(1) Babur / बाबर
(2) Shah Jahan / शाहजहाँ
(3) **Akbar / अकबर ✔**
(4) Jahangir / जहाँगीर

Q.22 The National Sports Policy 2025 integrates sports initiatives with which broader policy framework?
राष्ट्रीय खेल नीति 2025 खेल पहलों को किस व्यापक नीतिगत ढाँचे के साथ एकीकृत करती है?

(1) National Technology Policy 2024 / राष्ट्रीय प्रौद्योगिकी नीति 2024
(2) **National Education Policy 2020 / राष्ट्रीय शिक्षा नीति 2020 ✔**
(3) National Infrastructure Policy 2023 / राष्ट्रीय अवसंरचना नीति 2023
(4) National Health Policy 2022 / राष्ट्रीय स्वास्थ्य नीति 2022

Q.23 The Hurka Baul dance form is associated with the state of _____.
हुड़का बौल नृत्य शैली _____ राज्य से संबंधित है।

(1) Uttar Pradesh / उत्तर प्रदेश
(2) **Uttarakhand / उत्तराखंड ✔**
(3) Punjab / पंजाब
(4) West Bengal / पश्चिम बंगाल

Q.24 When was the Dutch Bengal established?
डच बंगाल की स्थापना कब हुई थी?

(1) 1625 AD / 1625 ई.
(2) 1628 AD / 1628 ई.
(3) 1626 AD / 1626 ई.
(4) **1627 AD / 1627 ई. ✔**

Q.25 Which major cycling event was set to pass through the Vatican for the first time in 2025?
2025 में कौन-सी प्रमुख साइकिलिंग प्रतियोगिता पहली बार वेटिकन से होकर गुज़रने वाली थी?

(1) Tour Down Under / टूर डाउन अंडर
(2) Tour de France / टूर डी फ्रांस
(3) **Giro d'Italia / गिरो डी'इटालिया ✔**
(4) Vuelta a España / वुएल्टा ए एस्पाना

Q.26 During his deportation to Mandalay in 1908 for allegedly publishing a seditious article in 'Kesari', Bal Gangadhar Tilak authored which of the following significant works?
'केसरी' में कथित रूप से राजद्रोहात्मक लेख प्रकाशित करने के लिए 1908 में मांडले निर्वासन के दौरान, बाल गंगाधर तिलक ने निम्नलिखित में से किस महत्वपूर्ण कृति की रचना की थी?

(1) Gita-Sar / गीता-सार
(2) Gita-Darshan / गीता-दर्शन
(3) **Gita-Rahasya / गीता-रहस्य ✔**
(4) Gita-Gyan / गीता-ज्ञान

Q.27 From which aircraft were the release trials of 'Gaurav' conducted by DRDO in April 2025?

अप्रैल 2025 में DRDO द्वारा 'गौरव' के रिलीज़ परीक्षण किस विमान से किए गए थे?

(1) Su-30 MKI ✔

(2) Mirage 2000 / मिराज 2000

(3) MiG-29

(4) Tejas / तेजस

Q.28 Which of the following is a qualification required for a person to be appointed as the Governor of an Indian state?

किसी भारतीय राज्य के राज्यपाल के रूप में नियुक्त होने के लिए किसी व्यक्ति के लिए निम्नलिखित में से कौन-सी योग्यता आवश्यक है?

(1) Must belong to the state for which he is appointed and be at least 30 years old / उसे उसी राज्य का निवासी होना चाहिए जिसके लिए वह नियुक्त किया गया है और उसकी आयु कम से कम 30 वर्ष होनी चाहिए

(2) Must be a member of the Parliament / उसे संसद का सदस्य होना चाहिए

(3) Must have served as a judge in a High Court / उसने किसी उच्च न्यायालय में न्यायाधीश के रूप में कार्य किया हो

(4) Must be a citizen of India and at least 35 years old / उसे भारत का नागरिक होना चाहिए और उसकी आयु कम से कम 35 वर्ष होनी चाहिए ✔

Q.29 In which of the following years was the 'Prime Minister's Employment Generation Programme (PMEGP)' launched by the Government of India?

भारत सरकार द्वारा 'प्रधानमंत्री रोज़गार सृजन कार्यक्रम (PMEGP)' निम्नलिखित में से किस वर्ष शुरू किया गया था?

(1) 2002

(2) 2012

(3) 2008 ✔

(4) 2005

Q.30 What can the central bank do to increase money supply in the economy?

अर्थव्यवस्था में मुद्रा आपूर्ति बढ़ाने के लिए केंद्रीय बैंक क्या कर सकता है?

(1) Increasing Cash reserve ratio / नकद आरक्षित अनुपात बढ़ाना

(2) Decresing the amount of funds / निधियों की मात्रा घटाना

(3) Increasing bank rate / बैंक दर बढ़ाना

(4) Decreasing bank rate / बैंक दर घटाना ✔

Q.31 Which global pressure belt lies around 30° North and South latitudes and is associated with dry climates?

कौन-सी वैश्विक वायुदाब पेटी 30° उत्तरी और दक्षिणी अक्षांशों के आसपास स्थित है और शुष्क जलवायु से संबंधित है?

(1) Polar high / ध्रुवीय उच्च वायुदाब

(2) Sub-tropical high / उपोष्ण उच्च वायुदाब ✔

(3) Equatorial low / विषुवतीय निम्न वायुदाब

(4) Sub-polar low / उपध्रुवीय निम्न वायुदाब

Q.32 In the process of photosynthesis, which of the following chemical reactions occurs during photolysis?
प्रकाश संश्लेषण की प्रक्रिया में, प्रकाश-अपघटन के दौरान निम्नलिखित में से कौन-सी रासायनिक अभिक्रिया होती है?

(1) **$2H_2O \rightarrow 4H^+ + 4e^- + O_2$ ✔**

(2) $NADP + e^- \rightarrow$ reduced NADP / $NADP + e^- \rightarrow$ अपचयित NADP

(3) $RUBP + O_2 \xrightarrow{RuBisCO} 3\text{-PGA} + \text{Phosphoglycolate}$, $\rightarrow CO_2$

(4) ADP + Pi → ATP

Q.33 Which of the following statements CORRECTLY links constitutional provisions regarding ministers with the appropriate schedules?
निम्नलिखित में से कौन-सा कथन मंत्रियों से संबंधित संवैधानिक प्रावधानों को उपयुक्त अनुसूचियों के साथ सही ढंग से जोड़ता है?

(1) **A disqualified MP under the Tenth Schedule cannot be appointed as a minister under Article 75(1B) for a specified period. / दसवीं अनुसूची के अंतर्गत निरर्हित संसद सदस्य को अनुच्छेद 75(1B) के अंतर्गत एक निर्दिष्ट अवधि के लिए मंत्री नियुक्त नहीं किया जा सकता। ✔**

(2) The collective responsibility of the Council of Ministers is enforced through provisions in the Fourth Schedule / मंत्रिपरिषद का सामूहिक उत्तरदायित्व चौथी अनुसूची के प्रावधानों के माध्यम से लागू किया जाता है

(3) Ministers hold office during the pleasure of the President, as outlined in the Ninth Schedule. / नौवीं अनुसूची में उल्लिखित अनुसार, मंत्री राष्ट्रपति के प्रसादपर्यंत पद धारण करते हैं।

(4) The form of oath for ministers is prescribed in the Second Schedule of the Constitution. / मंत्रियों के लिए शपथ का प्रारूप संविधान की दूसरी अनुसूची में निर्धारित है।

Q.34 Which of the following articles of the Indian Constitution is associated with the appointment of the Prime Minister of India?
भारतीय संविधान का निम्नलिखित में से कौन-सा अनुच्छेद भारत के प्रधानमंत्री की नियुक्ति से संबंधित है?

(1) Article 80 / अनुच्छेद 80

(2) Article 60 / अनुच्छेद 60

(3) Article 62 / अनुच्छेद 62

(4) **Article 75 / अनुच्छेद 75 ✔**

Q.35 Which of the following is a major tradition of Indian classical music that originated in North India?
निम्नलिखित में से कौन-सी भारतीय शास्त्रीय संगीत की एक प्रमुख परंपरा है जिसकी उत्पत्ति उत्तर भारत में हुई?

(1) Carnatic / कर्नाटक

(2) Modern / आधुनिक

(3) Folk / लोक

(4) **Hindustani / हिंदुस्तानी ✔**

Q.36 Which of the following does NOT focus on rural development?
निम्नलिखित में से कौन-सा ग्रामीण विकास पर केंद्रित नहीं है?

(1) **Enhancement of income levels in industrial sectors / औद्योगिक क्षेत्रों में आय स्तर में वृद्धि ✔**

(2) Development of litercay and skill development / साक्षरता का विकास और कौशल विकास

(3) Development of the productive resources of each locality / प्रत्येक क्षेत्र के उत्पादक संसाधनों का विकास

(4) Infrastructure development and special measures for poverty / अवसंरचना विकास और निर्धनता के लिए विशेष उपाय

Q.37 What is the main acid component in vinegar?

सिरके में मुख्य अम्ल घटक क्या है?

(1) Acetic acid / एसीटिक अम्ल ✔

(2) Nitric acid / नाइट्रिक अम्ल

(3) Tannic acid / टैनिक अम्ल

(4) Citric acid / सिट्रिक अम्ल

Q.38 Which state had the lowest literacy rate among the major states as per Census 2011?

जनगणना 2011 के अनुसार प्रमुख राज्यों में किस राज्य की साक्षरता दर सबसे कम थी?

(1) Uttar Pradesh / उत्तर प्रदेश

(2) Rajasthan / राजस्थान

(3) Madhya Pradesh / मध्य प्रदेश

(4) Bihar / बिहार ✔

Q.39 Aditya-L1 was the first Indian spacecraft to enter a halo orbit around the Sun- Earth L1 point in which year?

आदित्य-L1 किस वर्ष सूर्य-पृथ्वी L1 बिंदु के चारों ओर हेलो कक्षा में प्रवेश करने वाला पहला भारतीय अंतरिक्ष यान बना?

(1) 2023

(2) 2024 ✔

(3) 2021

(4) 2022

Q.40 In which city were the World Boxing Championships, 2025, held?

विश्व मुक्केबाज़ी चैंपियनशिप, 2025 किस शहर में आयोजित की गई थी?

(1) Manchester / मैनचेस्टर

(2) Liverpool / लिवरपूल ✔

(3) Birmingham / बर्मिंघम

(4) London / लंदन

Arithmetical and Numerical Ability

Q.41 A conical water tower with a radius of 9 metres and a height of 12 metres is made of reinforced concrete. What is the cost of the concrete used to make this water tower including its base if the price of concrete is ₹350 per m^2? (Given: π = 3.14)

9 मीटर त्रिज्या और 12 मीटर ऊँचाई वाली एक शंक्वाकार पानी की टंकी प्रबलित कंक्रीट से बनी है। यदि कंक्रीट का मूल्य ₹350 प्रति m^2 है, तो इस पानी की टंकी को उसके आधार सहित बनाने में प्रयुक्त कंक्रीट की लागत क्या है? (दिया गया है: π = 3.14)

(1) ₹2,37,384 ✔

(2) ₹2,63,761

(3) ₹2,54,528

(4) ₹2,45,824

Q.42 A sailor goes 12 km downstream in 1 hour and returns in 1 hour 12 minutes. Determine the speed of the sailor in still water.

एक नाविक धारा के अनुकूल 12 km की दूरी 1 घंटे में तय करता है और 1 घंटे 12 मिनट में वापस लौटता है। शांत जल में नाविक की चाल ज्ञात कीजिए।

(1) 9.5 km/hr

(2) 11 km/hr ✔

(3) 10 km/hr

(4) 10.5 km/hr

Q.43 Two numbers are in the ratio of 3 : 5, their LCM is 90. Find the numbers.

दो संख्याएँ 3 : 5 के अनुपात में हैं, उनका LCM 90 है। संख्याएँ ज्ञात कीजिए।

(1) 12, 20

(2) 15, 25

(3) 18, 30 ✔

(4) 21, 35

Q.44 The average of three numbers is 21. If two numbers are 16 and 23, the third number is:

तीन संख्याओं का औसत 21 है। यदि दो संख्याएँ 16 और 23 हैं, तो तीसरी संख्या है:

(1) 24 ✔

(2) 23

(3) 26

(4) 25

Q.45 What sum (in ₹) will earn a simple interest of ₹1680 in 2 years at 8% per year rate of interest?

कितनी राशि (₹ में) पर 8% वार्षिक ब्याज दर से 2 वर्ष में ₹1680 का साधारण ब्याज प्राप्त होगा?

(1) 10500 ✔

(2) 5250

(3) 21000

(4) 268.8

Q.46 Simplify: $\sqrt[3]{(5832)}/\sqrt[4]{(1296)} \times 3/54 \times 198$

सरल कीजिए: $\sqrt[3]{(5832)}/\sqrt[4]{(1296)} \times 3/54 \times 198$

(1) 33 ✔

(2) 30

(3) 27

(4) 23

Q.47 Anwar's salary is ₹12,000 per month. He spends ₹5,000 on house rent, ₹3,000 on bills and the rest of the amount is his monthly savings. Find his savings (in ₹) in a year, if in the month of his birthday he spent his complete monthly saving for birthday celebrations.

अनवर का वेतन ₹12,000 प्रति माह है। वह ₹5,000 मकान किराए पर, ₹3,000 बिलों पर खर्च करता है और शेष राशि उसकी मासिक बचत है। एक वर्ष में उसकी बचत (₹ में) ज्ञात कीजिए, यदि अपने जन्मदिन वाले महीने में उसने अपनी पूरी मासिक बचत जन्मदिन समारोह पर खर्च कर दी।

(1) 44,000 ✔

(2) 48,000

(3) 40,000

(4) 36,000

Q.48 From a solid wooden cylinder of radius 31.5 cm and height 25 cm, a cone of the same height and same diameter is made. What is the total surface area (in cm^2, rounded off to nearest tens) of the remaining part of the cylinder?

31.5 cm त्रिज्या और 25 cm ऊँचाई वाले लकड़ी के एक ठोस बेलन से समान ऊँचाई और समान व्यास का एक शंकु बनाया जाता है। बेलन के शेष भाग का कुल पृष्ठीय क्षेत्रफल (cm^2 में, निकटतम दहाई तक पूर्णांकित) क्या है?

(1) 12,050 ✔
(2) 12,570
(3) 17,630
(4) 15,800

Q.49 Two taps can fill a cistern in 2 hours and 31 hours. A third tap can empty it in 31 hours. How long (in hours) will it take to fill the empty cistern, if all of them are opened together?

दो नल एक टंकी को 2 घंटे और 31 घंटे में भर सकते हैं। एक तीसरा नल उसे 31 घंटे में खाली कर सकता है। यदि सभी नल एक साथ खोल दिए जाएँ, तो खाली टंकी को भरने में कितना समय (घंटों में) लगेगा?

(1) 5
(2) 4
(3) 3
(4) 2 ✔

Q.50 Ravi purchased 25 dozens of goods at the rate of ₹ 3,750 per dozen. He sold each one of them at the rate of ₹330. What was his percentage profit?

रवि ने ₹ 3,750 प्रति दर्जन की दर से 25 दर्जन वस्तुएँ खरीदीं। उसने उनमें से प्रत्येक को ₹330 की दर से बेचा। उसका लाभ प्रतिशत कितना था?

(1) 6.5%
(2) 7.5%
(3) 5.6% ✔
(4) 8.6%

Q.51 The distance between A and B is 752 km. From A, Vishal goes to B with a speed of 96 km/hr and return to A with a speed of 94 km/hr.
Find the average speed of Vishal. (Rounded off to two decimal places)

A और B के बीच की दूरी 752 km है। विशाल, A से B तक 96 km/hr की चाल से जाता है और 94 km/hr की चाल से A पर वापस लौटता है। विशाल की औसत चाल ज्ञात कीजिए। (दो दशमलव स्थानों तक पूर्णांकित)

(1) 95.38 km/hr
(2) 98.65 km/hr
(3) 94.99 km/hr ✔
(4) 97.25 km/hr

Q.52 If 48 is the mean proportion between x and 192, what is the value of x?

यदि x और 192 के बीच मध्यानुपाती 48 है, तो x का मान क्या है?

(1) 12 ✔
(2) 24
(3) 16
(4) 30

QuickSarkari.com | WhatsApp Channel | Telegram: t.me/quick_sarkari

Q.53 Shivam has two grandsons, Rupesh and Mandar. 12-year-old Rupesh gets some money from Shivam's wealth, and 13-year-old Mandar gets the rest of the money. But Rupesh and Mandar will get the money only when they turn 25 years old. Till then, the money will be kept in a bank earning interest at the rate of 8% per annum, compounded annually. When both turn 25, they receive the same amount. If the total amount Shivam had was ₹23,400, how much money (in ₹) did Shivam initially give to Mandar?

शिवम के दो पोते, रूपेश और मंदार हैं। 12 वर्षीय रूपेश को शिवम की संपत्ति में से कुछ धनराशि मिलती है, और 13 वर्षीय मंदार को शेष धनराशि मिलती है।
लेकिन रूपेश और मंदार को यह धनराशि तभी मिलेगी जब वे 25 वर्ष के हो जाएँगे। तब तक धनराशि बैंक में 8% वार्षिक की दर से वार्षिक रूप से संयोजित चक्रवृद्धि ब्याज पर जमा रहेगी। जब दोनों 25 वर्ष के हो जाते हैं, तो उन्हें समान राशि प्राप्त होती है।
यदि शिवम के पास कुल ₹23,400 थे, तो शिवम ने आरंभ में मंदार को कितनी धनराशि (₹ में) दी थी?

(1) 11,000
(2) **12,150** ✔
(3) 11,250
(4) 12,500

Q.54 The length and breadth of a rectangular field are in the ratio 8 : 7. If the perimeter of the field is 90 m, find the length (in m) of the field.

एक आयताकार खेत की लंबाई और चौड़ाई का अनुपात 8 : 7 है। यदि खेत का परिमाप 90 m है, तो खेत की लंबाई (m में) ज्ञात कीजिए।

(1) 21
(2) **24** ✔
(3) 27
(4) 18

Q.55 The given bar-graph shows the favourite sports of 540 students of a school.
Study the graph and answer the question that follows.

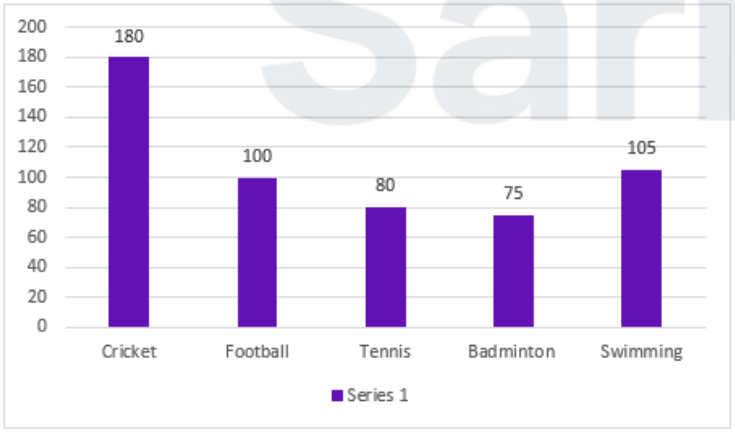

Find the ratio between the number of students who like Cricket to the number of students who like Badminton.

दिया गया दंड-आलेख एक विद्यालय के 540 विद्यार्थियों के पसंदीदा खेलों को दर्शाता है।
आलेख का अध्ययन कीजिए और उसके बाद दिए गए प्रश्न का उत्तर दीजिए।
क्रिकेट पसंद करने वाले विद्यार्थियों की संख्या और बैडमिंटन पसंद करने वाले विद्यार्थियों की संख्या का अनुपात ज्ञात कीजिए।

(1) 10 : 3
(2) 7 : 3
(3) **12 : 5** ✔
(4) 8 : 5

QuickSarkari.com | WhatsApp Channel | Telegram: t.me/quick_sarkari

Q.56 A tap fills a cistern in 16 hours. Another tap empties the full tank in 80 hours. How long (in hours) will it take to fill one-fourth of the tank, if the tank is empty initially and both the taps are open together?

एक नल एक टंकी को 16 घंटे में भरता है। दूसरा नल भरी हुई टंकी को 80 घंटे में खाली करता है। यदि टंकी आरंभ में खाली है और दोनों नल एक साथ खुले हैं, तो टंकी का एक-चौथाई भाग भरने में कितना समय (घंटों में) लगेगा?

(1) 20
(2) 10
(3) 15
(4) 5 ✔

Q.57 The average of 8 numbers is 45. If each number is increased by 3, what will be the new average?

8 संख्याओं का औसत 45 है। यदि प्रत्येक संख्या में 3 की वृद्धि की जाए, तो नया औसत क्या होगा?

(1) 45
(2) 48 ✔
(3) 8
(4) 51

Q.58 A shopkeeper bought 50 notebooks for ₹1,000. He sold all the notebooks for ₹1,250. What is his percentage profit?

एक दुकानदार ने ₹1,000 में 50 नोटबुक खरीदीं। उसने सभी नोटबुक ₹1,250 में बेच दीं। उसका लाभ प्रतिशत कितना है?

(1) 25% ✔
(2) 22.5%
(3) 20%
(4) 30%

Q.59 Three friends X, Y and Z started a business by investing a sum of money in the ratio of 5 : 2 : 8. After 6 months X withdraws half of his capital. If the sum invested by Z is ₹19000, out of a total annual profit of ₹55000, What is the difference between the X's and Y's profit?

तीन मित्रों X, Y और Z ने 5 : 2 : 8 के अनुपात में धनराशि निवेश करके एक व्यवसाय शुरू किया। 6 महीने बाद X अपनी आधी पूँजी निकाल लेता है। यदि Z द्वारा निवेश की गई राशि ₹19000 है, तो ₹55000 के कुल वार्षिक लाभ में से X और Y के लाभ का अंतर कितना है?

(1) ₹7000 ✔
(2) ₹8405
(3) ₹6195
(4) ₹7355

Q.60 Saed allows two successive discounts of 10% and 20% on the marked price of a ruler, which is equivalent to a single discount of ₹140. How much profit percentage will Saed make on that ruler if the cost price is ₹288?

सईद एक रूलर के अंकित मूल्य पर 10% और 20% की दो क्रमिक छूट देता है, जो ₹140 की एकल छूट के बराबर है। यदि क्रय मूल्य ₹288 है, तो सईद को उस रूलर पर कितने प्रतिशत लाभ होगा?

(1) 25% ✔
(2) 26%
(3) 28%
(4) 23%

English Language and Comprehension

Q.61 Identify the word which is not spelt correctly.
The committee concluded that the report contained inconsistant data that needed verification.

(1) inconsistant ✔
(2) concluded
(3) verification
(4) committee

Q.62 Select the appropriate conjunction to fill in the blank.
_____ it was raining heavily, the match continued.

(1) Although ✔
(2) Unless
(3) Since
(4) While

Q.63 Select the option that is the most appropriate antonym of the highlighted word in the given sentence.
The instructions were explicit and easy to follow.

(1) delicate
(2) important
(3) implicit ✔
(4) detailed

Q.64 Choose the appropriate verb form to complete the sentence.
If the manager _____ the issue earlier, we might have avoided the delay.

(1) address
(2) addressed
(3) addresses
(4) had addressed ✔

Q.65 Select the most appropriate option that can substitute the underlined words in the given sentence.
Within the four coming in between months occurred one of the unhappiest experiences of my life.

(1) suggesting
(2) abating
(3) skidding
(4) intervening ✔

Q.66 Select the most appropriate option to fill in the blank.
____ patriot in her did not let her yield.

(1) That
(2) A
(3) The ✔
(4) An

Q.67 Select the most appropriate option that can substitute the underlined words in the given sentence.
The answer lies at present locked in old diaries, half wiped out in the memories of the aged.

(1) discriminated
(2) abided
(3) **obliterated ✔**
(4) breached

Q.68 Parts of a sentence are given below. While the first and the last part (S1) and (S6) are in correct order, the parts in between are jumbled up. Arrange the parts in the correct order to form a meaningful sentence.
S1. Once we have assessed
P. the diverse patterns and
Q. shades at your disposal
R. specific preferences for you
S. we will communicate our S6. to prepare samples accordingly.

(1) QRPS
(2) RPSQ
(3) SQRP
(4) **PQSR ✔**

Q.69 Identify the antonym of the underlined word in the sentence given below.
The arid climate of the region makes agriculture difficult.

(1) shiny
(2) rough
(3) windy
(4) **humid ✔**

Q.70 Choose the most appropriate option to fill in the given blank.
If she ___ harder, she would have passed the exam.

(1) is studying
(2) **had studied ✔**
(3) study
(4) studies

Q.71 Select the most appropriate option to substitute the underlined word segment in the given sentence.
He took a risk.

(1) won laurels
(2) took to his heels
(3) **took a leap in the dark ✔**
(4) took great pains

Q.72 Complete the following sentence using the most appropriate option.
The District Manager created ..... one-year plan to improve sanitation of the city.

(1) **a ✔**
(2) an
(3) no article
(4) the

Q.73 Four words have been underlined in the given sentence. One of them is misspelt. From the given options, select the misspelt word.
From this it is a short step to the practice of the sophisticated arts hithreto so little practised by women - to the writing of essays and criticism, of history and biography.

(1) sophisticated
(2) biography
(3) criticism
(4) **hithreto ✔**

Q.74 In the following question a statement has been given with highlighted text. You are required to replace the text with the correct idiom from the given alternatives. The company's market share has been growing speedily in the last few years, mainly because of its strong customer base and innovative products.

(1) By fits and starts
(2) At the eleventh hour
(3) **By leaps and bounds ✔**
(4) By hook or crook

Q.75 Parts of a sentence are given below. While the first part is in the correct place, the remaining parts (labelled P, Q, R and S) are jumbled up. Arrange the parts in the correct order to form a meaningful and coherent sentence.
She quickly walked to the station,/trying to catch the train (P)/before it departed (Q)/checking the time (R)/on her phone (S)

(1) QPRS
(2) PRSQ
(3) **RSPQ ✔**
(4) RQSP

QuickSarkari.com | WhatsApp Channel | Telegram: t.me/quick_sarkari

Q.76

Read the given passage and answer the questions that follow.
During much of medieval Europe, monasteries played a crucial role in preserving knowledge at a time when formal education was limited and literacy was rare. Following the decline of the Roman Empire, many centres of learning collapsed, but monastic communities continued to value reading, writing and study as part of their religious life. Monks devoted long hours to copying manuscripts by hand, ensuring the survival of classical texts in philosophy, medicine, history and theology. Monasteries functioned not only as religious institutions but also as intellectual centres. Their libraries became repositories of accumulated knowledge, carefully maintained across generations. In addition to copying ancient works, monks produced commentaries, chronicles and scientific observations, blending classical learning with Christian thought. These activities helped shape medieval scholarship and laid foundations for later intellectual movements. Monastic schools also trained clerics and administrators, indirectly supporting governance and record keeping. Although access to this knowledge remained restricted, the careful preservation of texts meant that Europe did not entirely lose contact with its intellectual past. When universities began to emerge in the later Middle Ages, they drew heavily on materials that monasteries had safeguarded for centuries, making monastic preservation a vital link between antiquity and the Renaissance.

Which activity occupied a large part of monks' daily work?

(1) Conducting public debates
(2) Creating fictional literature
(3) **Copying manuscripts by hand ✔**
(4) Translating foreign languages

Q.77

Read the given passage and answer the questions that follow.
During much of medieval Europe, monasteries played a crucial role in preserving knowledge at a time when formal education was limited and literacy was rare. Following the decline of the Roman Empire, many centres of learning collapsed, but monastic communities continued to value reading, writing and study as part of their religious life. Monks devoted long hours to copying manuscripts by hand, ensuring the survival of classical texts in philosophy, medicine, history and theology. Monasteries functioned not only as religious institutions but also as intellectual centres. Their libraries became repositories of accumulated knowledge, carefully maintained across generations. In addition to copying ancient works, monks produced commentaries, chronicles and scientific observations, blending classical learning with Christian thought. These activities helped shape medieval scholarship and laid foundations for later intellectual movements. Monastic schools also trained clerics and administrators, indirectly supporting governance and record keeping. Although access to this knowledge remained restricted, the careful preservation of texts meant that Europe did not entirely lose contact with its intellectual past. When universities began to emerge in the later Middle Ages, they drew heavily on materials that monasteries had safeguarded for centuries, making monastic preservation a vital link between antiquity and the Renaissance.

How did monks treat classical learning?

(1) They replaced it with theology
(2) **They combined it with Christian thought ✔**
(3) They removed its philosophical elements
(4) They preserved it without change

Q.78

Read the given passage and answer the questions that follow.
During much of medieval Europe, monasteries played a crucial role in preserving knowledge at a time when formal education was limited and literacy was rare. Following the decline of the Roman Empire, many centres of learning collapsed, but monastic communities continued to value reading, writing and study as part of their religious life. Monks devoted long hours to copying manuscripts by hand, ensuring the survival of classical texts in philosophy, medicine, history and theology. Monasteries functioned not only as religious institutions but also as intellectual centres. Their libraries became repositories of accumulated knowledge, carefully maintained across generations. In addition to copying ancient works, monks produced commentaries, chronicles and scientific observations, blending classical learning with Christian thought. These activities helped shape medieval scholarship and laid foundations for later intellectual movements. Monastic schools also trained clerics and administrators, indirectly supporting governance and record keeping. Although access to this knowledge remained restricted, the careful preservation of texts meant that Europe did not entirely lose contact with its intellectual past. When universities began to emerge in the later Middle Ages, they drew heavily on materials that monasteries had safeguarded for centuries, making monastic preservation a vital link between antiquity and the Renaissance.

Select the most appropriate title for the passage.

(1) Monasteries as Keepers of Knowledge ✔
(2) The End of Classical Thought
(3) Religion and Medieval Power
(4) Decline of Learning in Europe in the Medieval Age

Q.79

Read the given passage and answer the questions that follow.
During much of medieval Europe, monasteries played a crucial role in preserving knowledge at a time when formal education was limited and literacy was rare. Following the decline of the Roman Empire, many centres of learning collapsed, but monastic communities continued to value reading, writing and study as part of their religious life. Monks devoted long hours to copying manuscripts by hand, ensuring the survival of classical texts in philosophy, medicine, history and theology. Monasteries functioned not only as religious institutions but also as intellectual centres. Their libraries became repositories of accumulated knowledge, carefully maintained across generations. In addition to copying ancient works, monks produced commentaries, chronicles and scientific observations, blending classical learning with Christian thought. These activities helped shape medieval scholarship and laid foundations for later intellectual movements. Monastic schools also trained clerics and administrators, indirectly supporting governance and record keeping. Although access to this knowledge remained restricted, the careful preservation of texts meant that Europe did not entirely lose contact with its intellectual past. When universities began to emerge in the later Middle Ages, they drew heavily on materials that monasteries had safeguarded for centuries, making monastic preservation a vital link between antiquity and the Renaissance.

Choose the antonym of “restricted”

(1) cautious
(2) limited
(3) open ✔
(4) selective

Q.80

Read the given passage and answer the questions that follow.
During much of medieval Europe, monasteries played a crucial role in preserving knowledge at a time when formal education was limited and literacy was rare. Following the decline of the Roman Empire, many centres of learning collapsed, but monastic communities continued to value reading, writing and study as part of their religious life. Monks devoted long hours to copying manuscripts by hand, ensuring the survival of classical texts in philosophy, medicine, history and theology. Monasteries functioned not only as religious institutions but also as intellectual centres. Their libraries became repositories of accumulated knowledge, carefully maintained across generations. In addition to copying ancient works, monks produced commentaries, chronicles and scientific observations, blending classical learning with Christian thought. These activities helped shape medieval scholarship and laid foundations for later intellectual movements. Monastic schools also trained clerics and administrators, indirectly supporting governance and record keeping. Although access to this knowledge remained restricted, the careful preservation of texts meant that Europe did not entirely lose contact with its intellectual past. When universities began to emerge in the later Middle Ages, they drew heavily on materials that monasteries had safeguarded for centuries, making monastic preservation a vital link between antiquity and the Renaissance.

What inference can be drawn about literacy in medieval Europe?

(1) It was actively discouraged
(2) It was found in urban regions only
(3) **It was limited to select groups ✔**
(4) It was equally distributed across regions

Hindi Language and Comprehension

Q.81 "आगे कुआँ पीछे खाई"- लोकोक्ति का क्या अर्थ है?

(1) खाद्य सामग्री का अभाव होना
(2) इधर-उधर की बातें करना
(3) **सभी ओर से विपत्ति का आना ✔**
(4) दुविधा में पड़ना

Q.82 नीचे दिए गए वाक्य के किस भाग में वर्तनी संबंधी अशुद्धिहै?
अधिकांस लोगों का यही विचार है ।

(1) यही
(2) **अधिकांस ✔**
(3) लोगों का
(4) विचार है ।

Q.83 प्रेमचंद की कहानियों में ग्रामीण व्यक्तितव जीवंत हो उठता है।
वर्तनी की दृष्टि से दिए गए वाक्य के किस अंश में त्रुटि है?

(1) कहानियों में
(2) जीवंत हो उठता है
(3) **ग्रामीण व्यक्तितव ✔**
(4) प्रेमचंद की

Q.84 अध्यापक द्वारा साहित्यिक रचना का रूप-विश्लेशण किया गया।
वर्तनी की दृष्टि से दिए गए वाक्य के किस अंश में त्रुटि है?

(1) अध्यापक द्वारा
(2) साहित्यिक रचना
(3) किया गया
(4) **का रूप-विश्लेशण ✔**

Q.85 उपयुक्त 'कारक' चिह्न का चयन कर रिक्त स्थान की पूर्ति कीजिए।
'यह शालू .....पुस्तक है।'

(1) पर
(2) को
(3) हे
(4) **की ✔**

Q.86 दिए गए वाक्य के किस भाग में त्रुटि है?
सहज भाषा पाने के लिए कठोर तप अवश्यक है।

(1) सहज भाषा
(2) कठोर तप
(3) **अवश्यक है। ✔**
(4) पाने के लिए

Q.87 दिये गए वाक्य के रेखांकित शब्द का पर्यायवाची शब्द चुनिए – मंदिर के गर्भगृह में दुर्गा माँ की कंचन आभा वाली मूर्ति स्थापित है।

(1) शीशा
(2) नग
(3) कंजन
(4) **कनक ✔**

Q.88 दिए गए वाक्यांश के लिए सार्थक शब्द चुनिए - ' जो मन को हर ले '

(1) प्रियतम
(2) हार
(3) **मनोहर ✔**
(4) मनहार

Q.89 दिए गए वाक्य को उचित क्रिया शब्द से पूर्ण कीजिए।
'पुलिस ने उसका सामान _____।'

(1) फेंका दिया
(2) **फेंका ✔**
(3) फेंके
(4) फेंकी

Q.90 नीचे लिखे वाक्य के लिए उचित विशेषण चुनिए।
'_____ व्यक्तियों ने इस बात का विरोध किया।'

(1) एक
(2) **लगभग ✔**
(3) चारों
(4) किलो भर

Quick Sarkari

Q.91 उपयुक्त संप्रदान कारक के प्रयोग से वाक्य को पूर्ण कीजिए।
नर्स रोगी ..... दवा ला रही है।

(1) के लिए ✔
(2) का
(3) से
(4) की

Q.92 निम्नलिखित विकल्पों में से कौन-से वाक्य में वर्तनी से संबंधित त्रुटि नहीं है?

(1) वाल्मीकि रामायण की रचना संस्कृत भाषा में हुई है। ✔
(2) वाल्मीकी रामायण की रचना संस्कृत भाषा में हुई है।
(3) बाल्मीकि रामायण की रचना संस्कृत भाषा में हुई है।
(4) वल्मीकी रामायण की रचना संस्कृत भाषा में हुई है।

Q.93 निम्नलिखित वाक्य के रेखांकित शब्द का पर्यायवाची कौन-सा है?
'आज दूध बहुत मीठा था।'

(1) मामला
(2) खुला
(3) प्रमुख
(4) मिष्ठ ✔

Q.94 उपयुक्त कालवाचक क्रिया-विशेषण के प्रयोग से वाक्य पूरा करें- श्यामा ..... खेलती रहती है।

(1) हमेशा ✔
(2) बहुत
(3) जल्दी-जल्दी
(4) वहाँ

Q.95 दिए गए वाक्यांश के लिए सार्थक शब्द चुनें- नहीं खाने योग्य

(1) अखाद्य ✔
(2) खाद्य
(3) अभेद
(4) भोग

Quick Sarkari

Q.96

गद्यांश को पढ़कर निम्नलिखित प्रश्नों के उत्तर दीजिए।
रात्रि अपनी भीषणताओं के साथ चलती रहती और उसकी सारी भीषणता को, ताल ठोककर, ललकारती रहती थी—सिर्फ़ पहलवान की ढोलक! संध्या से लेकर प्रातःकाल तक एक ही गति से बजती रहती—'चट्-धा, गिड़-धा,...चट्-धा, गिड़ धा!' यानी 'आ जा भिड़ जा, आ जा भिड़ जा!'...बीच-बीच में—'चटाक्-चट्-धा, चटाक्-चट्-धा!' यानी 'उठाकर पटक दे! उठाकर पटक दे!' यही आवाज़ मृत-गाँव में संजीवनी शक्ति भरती रहती थी। लुट्टन सिंह पहलवान! यों तो वह कहा करता था—'लुट्टन सिंह पहलवान को होल इंडिया भर के लोग जानते हैं', किंतु उसके 'होल-इंडिया' की सीमा शायद एक जिले की सीमा के बराबर ही हो। जिले भर के लोग उसके नाम से अवश्य परिचित थे। लुट्टन के माता-पिता उसे नौ वर्ष की उम्र में ही अनाथ बनाकर चल बसे थे। सौभाग्यवश शादी हो चुकी थी, वरना वह भी माँ-बाप का अनुसरण करता। विधवा सास ने पाल-पोस कर बड़ा किया।बचपन में वह गाय चराता, धारोष्ण दूध पीता और कसरत किया करता था। गाँव के लोग उसकी सास को तरह-तरह की तकलीफ़ दिया करते थे; लुट्टन के सिर पर कसरत की धुन लोगों से बदला लेने के लिए ही सवार हुई थी।

दिए गए गद्यांश के लिए उपयुक्त शीर्षक का चयन कीजिए।

(1) पहलवान की ढोलक ✔
(2) पहलवान की लाठी
(3) रात्रि की नीरवता
(4) प्रात:काल का समय

Q.97

गद्यांश को पढ़कर निम्नलिखित प्रश्नों के उत्तर दीजिए।
रात्रि अपनी भीषणताओं के साथ चलती रहती और उसकी सारी भीषणता को, ताल ठोककर, ललकारती रहती थी—सिर्फ़ पहलवान की ढोलक! संध्या से लेकर प्रातःकाल तक एक ही गति से बजती रहती—'चट्-धा, गिड़-धा,...चट्-धा, गिड़ धा!' यानी 'आ जा भिड़ जा, आ जा भिड़ जा!'...बीच-बीच में—'चटाक्-चट्-धा, चटाक्-चट्-धा!' यानी 'उठाकर पटक दे! उठाकर पटक दे!' यही आवाज़ मृत-गाँव में संजीवनी शक्ति भरती रहती थी। लुट्टन सिंह पहलवान! यों तो वह कहा करता था—'लुट्टन सिंह पहलवान को होल इंडिया भर के लोग जानते हैं', किंतु उसके 'होल-इंडिया' की सीमा शायद एक जिले की सीमा के बराबर ही हो। जिले भर के लोग उसके नाम से अवश्य परिचित थे। लुट्टन के माता-पिता उसे नौ वर्ष की उम्र में ही अनाथ बनाकर चल बसे थे। सौभाग्यवश शादी हो चुकी थी, वरना वह भी माँ-बाप का अनुसरण करता। विधवा सास ने पाल-पोस कर बड़ा किया।बचपन में वह गाय चराता, धारोष्ण दूध पीता और कसरत किया करता था। गाँव के लोग उसकी सास को तरह-तरह की तकलीफ़ दिया करते थे; लुट्टन के सिर पर कसरत की धुन लोगों से बदला लेने के लिए ही सवार हुई थी।

रात्रि की भीषणता को कौन ललकारती रहती थी ?

(1) रात्रि का प्रहरी
(2) गाँव के लोग
(3) पुलिस प्रशासन
(4) पहलवान की ढोलक ✔

Q.98

गद्यांश को पढ़कर निम्नलिखित प्रश्नों के उत्तर दीजिए।
रात्रि अपनी भीषणताओं के साथ चलती रहती और उसकी सारी भीषणता को, ताल ठोककर, ललकारती रहती थी—सिर्फ़ पहलवान की ढोलक! संध्या से लेकर प्रातःकाल तक एक ही गति से बजती रहती—'चट्-धा, गिड़-धा,...चट्-धा, गिड़ धा!' यानी 'आ जा भिड़ जा, आ जा भिड़ जा!'...बीच-बीच में—'चटाक्-चट्-धा, चटाक्-चट्-धा!' यानी 'उठाकर पटक दे! उठाकर पटक दे!' यही आवाज़ मृत-गाँव में संजीवनी शक्ति भरती रहती थी। लुट्टन सिंह पहलवान! यों तो वह कहा करता था—'लुट्टन सिंह पहलवान को होल इंडिया भर के लोग जानते हैं', किंतु उसके 'होल-इंडिया' की सीमा शायद एक जिले की सीमा के बराबर ही हो। जिले भर के लोग उसके नाम से अवश्य परिचित थे। लुट्टन के माता-पिता उसे नौ वर्ष की उम्र में ही अनाथ बनाकर चल बसे थे। सौभाग्यवश शादी हो चुकी थी, वरना वह भी माँ-बाप का अनुसरण करता। विधवा सास ने पाल-पोस कर बड़ा किया।बचपन में वह गाय चराता, धारोष्ण दूध पीता और कसरत किया करता था। गाँव के लोग उसकी सास को तरह-तरह की तकलीफ़ दिया करते थे; लुट्टन के सिर पर कसरत की धुन लोगों से बदला लेने के लिए ही सवार हुई थी।

पहलवान का नाम क्या था ?

(1) गुड्डन सिंह
(2) **लुट्टन सिंह** ✔
(3) चन्दन सिंह
(4) छुट्टन सिंह

Q.99

गद्यांश को पढ़कर निम्नलिखित प्रश्नों के उत्तर दीजिए।
रात्रि अपनी भीषणताओं के साथ चलती रहती और उसकी सारी भीषणता को, ताल ठोककर, ललकारती रहती थी—सिर्फ़ पहलवान की ढोलक! संध्या से लेकर प्रातःकाल तक एक ही गति से बजती रहती—'चट्-धा, गिड़-धा,...चट्-धा, गिड़ धा!' यानी 'आ जा भिड़ जा, आ जा भिड़ जा!'...बीच-बीच में—'चटाक्-चट्-धा, चटाक्-चट्-धा!' यानी 'उठाकर पटक दे! उठाकर पटक दे!' यही आवाज़ मृत-गाँव में संजीवनी शक्ति भरती रहती थी। लुट्टन सिंह पहलवान! यों तो वह कहा करता था—'लुट्टन सिंह पहलवान को होल इंडिया भर के लोग जानते हैं', किंतु उसके 'होल-इंडिया' की सीमा शायद एक जिले की सीमा के बराबर ही हो। जिले भर के लोग उसके नाम से अवश्य परिचित थे। लुट्टन के माता-पिता उसे नौ वर्ष की उम्र में ही अनाथ बनाकर चल बसे थे। सौभाग्यवश शादी हो चुकी थी, वरना वह भी माँ-बाप का अनुसरण करता। विधवा सास ने पाल-पोस कर बड़ा किया।बचपन में वह गाय चराता, धारोष्ण दूध पीता और कसरत किया करता था। गाँव के लोग उसकी सास को तरह-तरह की तकलीफ़ दिया करते थे; लुट्टन के सिर पर कसरत की धुन लोगों से बदला लेने के लिए ही सवार हुई थी।

गद्यांश में प्रयुक्त 'शक्ति' का पर्यायवाची शब्द कौन है ?

(1) शपथ
(2) शासन
(3) **क्षमता** ✔
(4) शत्रु

Q.100

गद्यांश को पढ़कर निम्नलिखित प्रश्नों के उत्तर दीजिए।
रात्रि अपनी भीषणताओं के साथ चलती रहती और उसकी सारी भीषणता को, ताल ठोककर, ललकारती रहती थी—सिर्फ़ पहलवान की ढोलक! संध्या से लेकर प्रातःकाल तक एक ही गति से बजती रहती—'चट्-धा, गिड़-धा,...चट्-धा, गिड़ धा!' यानी 'आ जा भिड़ जा, आ जा भिड़ जा!'...बीच-बीच में—'चटाक्-चट्-धा, चटाक्-चट्-धा!' यानी 'उठाकर पटक दे! उठाकर पटक दे!' यही आवाज़ मृत-गाँव में संजीवनी शक्ति भरती रहती थी। लुट्टन सिंह पहलवान! यों तो वह कहा करता था—'लुट्टन सिंह पहलवान को होल इंडिया भर के लोग जानते हैं', किंतु उसके 'होल-इंडिया' की सीमा शायद एक जिले की सीमा के बराबर ही हो। जिले भर के लोग उसके नाम से अवश्य परिचित थे। लुट्टन के माता-पिता उसे नौ वर्ष की उम्र में ही अनाथ बनाकर चल बसे थे। सौभाग्यवश शादी हो चुकी थी, वरना वह भी माँ-बाप का अनुसरण करता। विधवा सास ने पाल-पोस कर बड़ा किया।बचपन में वह गाय चराता, धारोष्ण दूध पीता और कसरत किया करता था। गाँव के लोग उसकी सास को तरह-तरह की तकलीफ़ दिया करते थे; लुट्टन के सिर पर कसरत की धुन लोगों से बदला लेने के लिए ही सवार हुई थी।

गद्यांश में प्रयुक्त 'परिचित' का विलोम शब्द कौन है ?

(1) अपरिचित ✔
(2) अपरिमित
(3) अपरुष
(4) अपरिपुष्ट

Assistant Teacher (Primary) – PRT

Q.101 In terms of educational planning, what did the Radha Krishnan Commission suggest for effective development of higher education?
शैक्षिक नियोजन के संदर्भ में, राधाकृष्णन आयोग ने उच्च शिक्षा के प्रभावी विकास के लिए क्या सुझाव दिया था?

(1) Allowing each university to plan independently / प्रत्येक विश्वविद्यालय को स्वतंत्र रूप से योजना बनाने की अनुमति देना
(2) Establishing a national body for university coordination / विश्वविद्यालयों के समन्वय के लिए एक राष्ट्रीय निकाय की स्थापना करना ✔
(3) Abolishing creation of planning bodies in education / शिक्षा में नियोजन निकायों के गठन को समाप्त करना
(4) Decentralizing all higher education planning / समस्त उच्च शिक्षा नियोजन का विकेंद्रीकरण करना

Q.102 What challenges do children from tribal regions face in the Indian education system?
भारतीय शिक्षा प्रणाली में जनजातीय क्षेत्रों के बच्चों को किन चुनौतियों का सामना करना पड़ता है?

(1) Overwhelming access to digital platforms. / डिजिटल प्लेटफ़ॉर्म तक अत्यधिक पहुँच।
(2) Lack of materials and teachers proficient in indigenous languages. / स्वदेशी भाषाओं में दक्ष सामग्री और शिक्षकों का अभाव। ✔
(3) Excessive focus on extracurricular activities. / पाठ्येतर गतिविधियों पर अत्यधिक ध्यान।
(4) Difficulty in learning multiple foreign languages. / अनेक विदेशी भाषाएँ सीखने में कठिनाई।

Q.103 Which of the following best describes the principle of 'orderly progression' in child growth and development?
निम्नलिखित में से कौन-सा कथन बाल वृद्धि और विकास में 'क्रमबद्ध प्रगति' के सिद्धांत का सबसे अच्छा वर्णन करता है?

(1) Growth stops after infancy and does not proceed. / शैशवावस्था के बाद वृद्धि रुक जाती है और आगे नहीं बढ़ती।
(2) Development follows a predictable sequence from simple to complex. / विकास सरल से जटिल की ओर एक पूर्वानुमेय क्रम का अनुसरण करता है। ✔
(3) Development occurs randomly without any sequence. / विकास बिना किसी क्रम के यादृच्छिक रूप से होता है।
(4) All children develop at the same rate. / सभी बच्चे एक ही दर से विकसित होते हैं।

Q.104 A country where people speak different languages, follow different religions, and have diverse cultural practices can be described as:

एक ऐसे देश को, जहाँ लोग विभिन्न भाषाएँ बोलते हैं, विभिन्न धर्मों का पालन करते हैं और विविध सांस्कृतिक प्रथाएँ रखते हैं, इस रूप में वर्णित किया जा सकता है:

(1) Uniform in culture and religion / संस्कृति और धर्म में एकरूप

(2) Monolingual and monocultural / एकभाषी और एकसांस्कृतिक

(3) Hierarchical and caste-based / पदानुक्रमित और जाति-आधारित

(4) Multilingual, multireligious, and multicultural / बहुभाषी, बहुधार्मिक और बहुसांस्कृतिक ✔

Q.105 Which stage is known for the development of self-concept in children?

कौन-सी अवस्था बच्चों में आत्म-संप्रत्यय के विकास के लिए जानी जाती है?

(1) Adulthood / वयस्कावस्था

(2) Middle childhood / मध्य बाल्यावस्था ✔

(3) Infancy / शैशवावस्था

(4) Adolescence / किशोरावस्था

Q.106 Which intervention best supports learners from low-literacy backgrounds?

कौन-सा हस्तक्षेप निम्न साक्षरता पृष्ठभूमि वाले शिक्षार्थियों को सबसे अच्छा सहयोग देता है?

(1) Extra homework assignments / अतिरिक्त गृहकार्य देना

(2) Reading aloud in class / कक्षा में ज़ोर से पढ़ना

(3) Peer tutoring only / केवल सहपाठी शिक्षण

(4) Use visual learning aids / दृश्य शिक्षण सहायक सामग्री का उपयोग ✔

Q.107 Which constitutional value is violated if school morals are based on one religion?

यदि विद्यालय की नैतिक शिक्षा किसी एक धर्म पर आधारित हो, तो किस संवैधानिक मूल्य का उल्लंघन होता है?

(1) The principle of secularism, which requires state neutrality in matters of religion / पंथनिरपेक्षता का सिद्धांत, जिसके लिए धर्म के मामलों में राज्य की तटस्थता आवश्यक है ✔

(2) The commitment to equality, particularly in terms of gender inclusion / समानता के प्रति प्रतिबद्धता, विशेष रूप से लैंगिक समावेशन के संदर्भ में

(3) The guarantee of liberty of thought and expression within educational institutions / शैक्षणिक संस्थानों के भीतर विचार और अभिव्यक्ति की स्वतंत्रता की गारंटी

(4) The objective of economic justice in ensuring equitable educational outcomes / न्यायसंगत शैक्षिक परिणाम सुनिश्चित करने में आर्थिक न्याय का उद्देश्य

Q.108 Which words were added to the "Preamble of the Constitution of India" through the 42nd Amendment (1976)?

42वें संशोधन (1976) के माध्यम से "भारत के संविधान की उद्देशिका" में कौन-से शब्द जोड़े गए थे?

(1) Republic and Justice / गणराज्य और न्याय

(2) Sovereign and Democratic / संप्रभु और लोकतांत्रिक

(3) Liberty and Equality / स्वतंत्रता और समानता

(4) Socialist and Secular / समाजवादी और पंथनिरपेक्ष ✔

Q.109 Adolescents who articulate principled ideals for society yet find it challenging to implement these standards in their own lives are demonstrating a conflict between:

जो किशोर समाज के लिए सैद्धांतिक आदर्शों को व्यक्त करते हैं, फिर भी इन मानकों को अपने जीवन में लागू करना चुनौतीपूर्ण पाते हैं, वे किसके बीच संघर्ष प्रदर्शित कर रहे हैं?

(1) Abstract reasoning and emotional regulation / अमूर्त तर्क और संवेगात्मक नियमन

(2) Cognitive advancement and social inexperience / संज्ञानात्मक उन्नति और सामाजिक अनुभवहीनता

(3) Hypothetical morality and realistic consequences / काल्पनिक नैतिकता और यथार्थवादी परिणाम ✔

(4) Real and ideal audience / वास्तविक और आदर्श श्रोता

Q.110 What is the concept of treating people differently or unfairly based on their gender called?

लिंग के आधार पर लोगों के साथ भिन्न या अनुचित व्यवहार करने की अवधारणा को क्या कहा जाता है?

(1) Poverty / निर्धनता

(2) Social inclusion / सामाजिक समावेशन

(3) Diversity / विविधता

(4) Gender discrimination / लैंगिक भेदभाव ✔

Q.111 During a group project, a 10-year-old takes turns leading and listening, showing concern for a teammate who is upset. Which stage-specific trait is the child displaying?

एक समूह परियोजना के दौरान, एक 10 वर्षीय बच्चा बारी-बारी से नेतृत्व करता है और सुनता है, तथा परेशान साथी के प्रति चिंता दिखाता है। बच्चा किस अवस्था-विशिष्ट विशेषता को प्रदर्शित कर रहा है?

(1) Self-conscious emotions like pride or shame / गर्व या लज्जा जैसे आत्म-सचेत संवेग

(2) Deeper empathy and social responsibility / गहन समानुभूति और सामाजिक उत्तरदायित्व ✔

(3) Testing limits through tantrums / नखरों के माध्यम से सीमाओं का परीक्षण

(4) Reflexive emotional reactions / प्रतिवर्ती संवेगात्मक प्रतिक्रियाएँ

Q.112 According to Piaget, what is the first stage of cognitive development called?

पियाजे के अनुसार, संज्ञानात्मक विकास की प्रथम अवस्था को क्या कहा जाता है?

(1) Concrete-operational stage / मूर्त-संक्रियात्मक अवस्था

(2) Sensori-motor stage / संवेदी-गामक अवस्था ✔

(3) Pre-operational stage / पूर्व-संक्रियात्मक अवस्था

(4) Formal operations stage / औपचारिक संक्रियात्मक अवस्था

Q.113 Which statement best reflects the psychological understanding of personality as a stable pattern of behaviour shaped over time?

कौन-सा कथन व्यक्तित्व को समय के साथ निर्मित व्यवहार के एक स्थिर प्रतिरूप के रूप में मनोवैज्ञानिक समझ को सबसे अच्छी तरह दर्शाता है?

(1) It reflects cognitive skills and moral reasoning capacities. / यह संज्ञानात्मक कौशलों और नैतिक तर्क क्षमताओं को दर्शाता है।

(2) It consists mainly of emotional responses and social relationships. / इसमें मुख्य रूप से संवेगात्मक प्रतिक्रियाएँ और सामाजिक संबंध शामिल होते हैं।

(3) It develops through the interaction of inherited traits. / यह वंशानुगत लक्षणों की अंतःक्रिया के माध्यम से विकसित होता है। ✔

(4) It is determined by physical appearance and mental abilities. / यह शारीरिक बनावट और मानसिक क्षमताओं द्वारा निर्धारित होता है।

Q.114 Girls hesitate to join science clubs due to social attitudes. What issue does this reflect?
सामाजिक दृष्टिकोणों के कारण लड़कियाँ विज्ञान क्लबों में शामिल होने में संकोच करती हैं। यह किस मुद्दे को दर्शाता है?

(1) Cultural festivals / सांस्कृतिक उत्सव
(2) Urbanization / नगरीकरण
(3) **Gender discrimination / लैंगिक भेदभाव ✔**
(4) Economic planning / आर्थिक नियोजन

Q.115 Which of the following best describes Peace Education?
निम्नलिखित में से कौन-सा शांति शिक्षा का सबसे अच्छा वर्णन करता है?

(1) It focuses on science and technology only. / यह केवल विज्ञान और प्रौद्योगिकी पर केंद्रित है।
(2) It promotes strict discipline through punishment. / यह दंड के माध्यम से कठोर अनुशासन को बढ़ावा देती है।
(3) It discourages group cohesiveness. / यह समूह संसक्तता को हतोत्साहित करती है।
(4) **It teaches values of non-violence and tolerance. / यह अहिंसा और सहिष्णुता के मूल्य सिखाती है। ✔**

Q.116 On what must the curriculum focus to meet the RTE's stress-free learning mandate?
RTE के तनाव-मुक्त अधिगम के अधिदेश को पूरा करने के लिए पाठ्यचर्या को किस पर केंद्रित होना चाहिए?

(1) **Total learning experience / संपूर्ण अधिगम अनुभव ✔**
(2) Detailed assessment blueprints / विस्तृत मूल्यांकन ब्लूप्रिंट
(3) Specific subject content scope / विशिष्ट विषय-वस्तु का दायरा
(4) Teacher-student qualification rules / शिक्षक-छात्र योग्यता नियम

Q.117 Which stage is characterized by object permanence?
कौन-सी अवस्था वस्तु स्थायित्व की विशेषता रखती है?

(1) Concrete operational stage / मूर्त संक्रियात्मक अवस्था
(2) **Sensorimotor stage / संवेदी-गामक अवस्था ✔**
(3) Formal operational stage / औपचारिक संक्रियात्मक अवस्था
(4) Preoperational stage / पूर्व-संक्रियात्मक अवस्था

Q.118 In Kohlberg's stages of moral development, which trait is commonly seen in the pre-conventional stage?
कोहलबर्ग की नैतिक विकास की अवस्थाओं में, पूर्व-परंपरागत अवस्था में सामान्यतः कौन-सी विशेषता देखी जाती है?

(1) Actions guided by concern for social approval / सामाजिक स्वीकृति की चिंता से निर्देशित कार्य
(2) **Decisions based on avoiding punishment / दंड से बचने पर आधारित निर्णय ✔**
(3) Behaviors directed by internalized moral codes / आत्मसात नैतिक संहिताओं द्वारा निर्देशित व्यवहार
(4) Judgments based on universal ethical principles / सार्वभौमिक नैतिक सिद्धांतों पर आधारित निर्णय

Q.119 What is the main purpose of socialisation in education?
शिक्षा में समाजीकरण का मुख्य उद्देश्य क्या है?

(1) **To learn norms and values of society / समाज के मानदंडों और मूल्यों को सीखना ✔**
(2) To prepare students for exams / विद्यार्थियों को परीक्षाओं के लिए तैयार करना
(3) To promote competition among students / विद्यार्थियों के बीच प्रतिस्पर्धा को बढ़ावा देना
(4) To teach only academic subjects / केवल शैक्षणिक विषय पढ़ाना

QuickSarkari.com | WhatsApp Channel | Telegram: t.me/quick_sarkari

Q.120 Which value is NOT explicitly mentioned in the Preamble of the Indian Constitution as a guiding principle?

भारतीय संविधान की उद्देशिका में मार्गदर्शक सिद्धांत के रूप में कौन-सा मूल्य स्पष्ट रूप से उल्लिखित नहीं है?

(1) Environmental protection / पर्यावरण संरक्षण ✔

(2) Justice / न्याय

(3) Equality / समानता

(4) Liberty / स्वतंत्रता

Q.121 Which of the following best describes 'Learning to Observe' as discussed in the context of self-understanding?

आत्म-बोध के संदर्भ में चर्चित 'अवलोकन करना सीखना' का निम्नलिखित में से कौन-सा सबसे अच्छा वर्णन है?

(1) It requires ignoring one's emotions, feelings, and actions subjectively. / इसमें अपने संवेगों, भावनाओं और कार्यों की व्यक्तिनिष्ठ रूप से उपेक्षा करना आवश्यक है।

(2) It means copying others' behaviors and actions objectively. / इसका अर्थ है दूसरों के व्यवहारों और कार्यों की वस्तुनिष्ठ रूप से नकल करना।

(3) It encourages immediate reactions to any incidents. / यह किसी भी घटना पर तत्काल प्रतिक्रिया को प्रोत्साहित करता है।

(4) It involves paying attention to one's thoughts, feelings, and actions objectively. / इसमें अपने विचारों, भावनाओं और कार्यों पर वस्तुनिष्ठ रूप से ध्यान देना शामिल है। ✔

Q.122 What is mindfulness primarily focused on?

सचेतनता (माइंडफुलनेस) मुख्य रूप से किस पर केंद्रित है?

(1) Analyzing past experiences / पिछले अनुभवों का विश्लेषण करना

(2) Planning for the future / भविष्य की योजना बनाना

(3) Suppressing emotions / संवेगों का दमन करना

(4) Being intensely aware of the present moment without judgment / बिना कोई निर्णय किए वर्तमान क्षण के प्रति गहन रूप से जागरूक रहना ✔

Q.123 How does literature support the development of critical thinking in early literacy classrooms?

आरंभिक साक्षरता कक्षाओं में साहित्य आलोचनात्मक चिंतन के विकास में किस प्रकार सहायता करता है?

(1) By encouraging children to interpret meanings and make connections. / बच्चों को अर्थों की व्याख्या करने और संबंध स्थापित करने के लिए प्रोत्साहित करके। ✔

(2) By focusing mainly on handwriting practice. / मुख्य रूप से सुलेख अभ्यास पर ध्यान केंद्रित करके।

(3) By requiring children to memorize facts from stories. / बच्चों से कहानियों के तथ्य कंठस्थ करवाकर।

(4) By having children repeat sentences after the teacher. / बच्चों से शिक्षक के बाद वाक्य दोहरवाकर।

Q.124 Which of the following best describes cultural lag?

निम्नलिखित में से कौन-सा सांस्कृतिक विलंबना का सबसे अच्छा वर्णन करता है?

(1) The delay in non-material culture catching up with the changes in material culture / भौतिक संस्कृति में हुए परिवर्तनों के साथ अभौतिक संस्कृति के तालमेल बिठाने में होने वाला विलंब ✔

(2) A subculture that opposes the dominant culture / एक उपसंस्कृति जो प्रभुत्वशाली संस्कृति का विरोध करती है

(3) A smaller cultural group within a larger culture / एक बड़ी संस्कृति के भीतर एक छोटा सांस्कृतिक समूह

(4) The gap between ideal culture and real culture / आदर्श संस्कृति और वास्तविक संस्कृति के बीच का अंतर

Q.125 Peer tutoring is effective because tutors and learners often share a:

सहपाठी शिक्षण प्रभावी होता है क्योंकि शिक्षक-सहपाठी और शिक्षार्थी प्रायः समान रूप से साझा करते हैं:

(1) Common language and understanding / सामान्य भाषा और समझ ✔

(2) Comparable academic training / तुलनीय शैक्षणिक प्रशिक्षण

(3) Similar learning pace / समान अधिगम गति

(4) Structured teaching approach / संरचित शिक्षण उपागम

Q.126 A trainee counselor practices learning to observe by noting her physical sensations and thoughts during client sessions. How does this practice enhance her effectiveness as a counselor over time?

एक प्रशिक्षु परामर्शदाता क्लाइंट सत्रों के दौरान अपनी शारीरिक संवेदनाओं और विचारों को नोट करके अवलोकन करना सीखने का अभ्यास करती है। यह अभ्यास समय के साथ परामर्शदाता के रूप में उसकी प्रभावशीलता को कैसे बढ़ाता है?

(1) It enables her to recognize personal biases and maintain objectivity with clients / यह उसे व्यक्तिगत पूर्वाग्रहों को पहचानने और क्लाइंट के साथ वस्तुनिष्ठता बनाए रखने में सक्षम बनाता है ✔

(2) It makes her stay emotionally distant from clients in most sessions / यह उसे अधिकांश सत्रों में क्लाइंट से संवेगात्मक रूप से दूर रखता है

(3) It leads her to agree with whatever the client says each time / यह उसे हर बार क्लाइंट की हर बात से सहमत होने की ओर ले जाता है

(4) It makes her focus excessively on her own feelings / यह उसे अपनी भावनाओं पर अत्यधिक ध्यान केंद्रित करने वाला बनाता है

Q.127 Which difficulty is indicated when a speaker inserts a vowel between two consonants (e.g., “s-táart”)?

जब कोई वक्ता दो व्यंजनों के बीच एक स्वर डाल देता है (उदाहरण के लिए, “s-táart”), तो किस कठिनाई का संकेत मिलता है?

(1) L1 phonotactic constraint / L1 ध्वनि-विन्यास (फ़ोनोटैक्टिक) बाध्यता ✔

(2) Lexical retrieval speed / शाब्दिक पुनःप्राप्ति गति

(3) Grammar morpheme learning / व्याकरणिक रूपिम अधिगम

(4) Semantic overextension / अर्थगत अतिविस्तार

Q.128 What does the scope of multilingualism primarily encompass?

बहुभाषिकता के दायरे में मुख्य रूप से क्या शामिल है?

(1) Promoting communication across cultures / विभिन्न संस्कृतियों के बीच संप्रेषण को बढ़ावा देना ✔

(2) Reducing opportunities for education / शिक्षा के अवसरों को कम करना

(3) Restricting interaction to a single language / अंतःक्रिया को एक ही भाषा तक सीमित करना

(4) Limiting cultural exchange / सांस्कृतिक आदान-प्रदान को सीमित करना

Q.129 Which pattern best reflects group conformity when members align their actions with the group’s expectations?

जब सदस्य अपने कार्यों को समूह की अपेक्षाओं के अनुरूप ढालते हैं, तो कौन-सा प्रतिरूप समूह अनुरूपता को सबसे अच्छी तरह दर्शाता है?

(1) Norm adherence / मानदंड पालन ✔

(2) Role ambiguity / भूमिका अस्पष्टता

(3) Task avoidance / कार्य परिहार

(4) Leadership emergence / नेतृत्व का उद्भव

QuickSarkari.com | WhatsApp Channel | Telegram: t.me/quick_sarkari

Q.130 A group of student-teachers reflect together after a guided body scan exercise and share their observations about physical tension. According to mindfulness approaches, what is the key purpose of this collective reflection?

छात्र-शिक्षकों का एक समूह एक निर्देशित बॉडी स्कैन अभ्यास के बाद साथ मिलकर चिंतन करता है और शारीरिक तनाव के बारे में अपने अवलोकन साझा करता है। सचेतनता उपागमों के अनुसार, इस सामूहिक चिंतन का मुख्य उद्देश्य क्या है?

(1) To compare who felt the most relaxed among peers / साथियों में से किसने सबसे अधिक विश्रांति अनुभव की, इसकी तुलना करना

(2) To determine who needs more physical exercise / यह निर्धारित करना कि किसे अधिक शारीरिक व्यायाम की आवश्यकता है

(3) To evaluate each other's teaching styles / एक-दूसरे की शिक्षण शैलियों का मूल्यांकन करना

(4) To connect personal experiences with deeper self-insights / व्यक्तिगत अनुभवों को गहन आत्म-अंतर्दृष्टि से जोड़ना ✔

Q.131 If a teacher notices students seem confused and provides a prompt to encourage deeper thinking, which pedagogical skill is being demonstrated?

यदि कोई शिक्षक देखता है कि विद्यार्थी भ्रमित प्रतीत हो रहे हैं और गहन चिंतन को प्रोत्साहित करने के लिए एक संकेत देता है, तो कौन-सा शिक्षणशास्त्रीय कौशल प्रदर्शित हो रहा है?

(1) Repetition / पुनरावृत्ति

(2) Scaffolding / पाड़ (स्कैफोल्डिंग)

(3) Reinforcement / पुनर्बलन

(4) Probing / खोजपूर्ण प्रश्न (प्रोबिंग) ✔

Q.132 What is necessary for multilingual speakers to engage in a bilingual mode during conversation?

बातचीत के दौरान बहुभाषी वक्ताओं के द्विभाषी मोड में संलग्न होने के लिए क्या आवश्यक है?

(1) A strict alternation after each sentence / प्रत्येक वाक्य के बाद कठोर अदला-बदली

(2) An automatic response due to bilingual competence / द्विभाषी दक्षता के कारण एक स्वचालित प्रतिक्रिया

(3) A mutually established agreement on appropriateness / उपयुक्तता पर पारस्परिक रूप से स्थापित सहमति ✔

(4) The absence of any formality / किसी भी औपचारिकता का अभाव

Q.133 In peer tutoring, what role does the tutor play in supporting their peer's learning process?

सहपाठी शिक्षण में, शिक्षक-सहपाठी अपने साथी की अधिगम प्रक्रिया में सहयोग देने में क्या भूमिका निभाता है?

(1) The tutor assigns all homework without explanation. / शिक्षक-सहपाठी बिना व्याख्या के सारा गृहकार्य सौंप देता है।

(2) The tutor explains concepts and provides feedback. / शिक्षक-सहपाठी अवधारणाओं की व्याख्या करता है और प्रतिपुष्टि देता है। ✔

(3) The tutor takes attendance rather than teaching. / शिक्षक-सहपाठी पढ़ाने के बजाय उपस्थिति दर्ज करता है।

(4) The tutor grades final exams without discussion. / शिक्षक-सहपाठी बिना चर्चा के अंतिम परीक्षाओं का ग्रेड देता है।

Q.134 Knowledge relating to the step-by-step procedure for doing a certain mathematical task is categorized as which type of knowledge?

किसी निश्चित गणितीय कार्य को करने की चरण-दर-चरण प्रक्रिया से संबंधित ज्ञान को किस प्रकार के ज्ञान के रूप में वर्गीकृत किया जाता है?

(1) Conceptual knowledge / संकल्पनात्मक ज्ञान

(2) Procedural knowledge / प्रक्रियात्मक ज्ञान ✔

(3) Contextual knowledge / संदर्भगत ज्ञान

(4) Abstract knowledge / अमूर्त ज्ञान

Q.135 In curriculum development, which approach emphasizes the integration of various subjects to address social issues and foster holistic understanding?

पाठ्यचर्या विकास में, कौन-सा उपागम सामाजिक मुद्दों का समाधान करने और समग्र समझ विकसित करने के लिए विभिन्न विषयों के एकीकरण पर बल देता है?

(1) Behaviorist approach / व्यवहारवादी उपागम

(2) **Interdisciplinary approach / अंतर्विषयक उपागम ✔**

(3) Hidden curriculum / छिपी हुई पाठ्यचर्या

(4) Subject-centered approach / विषय-केंद्रित उपागम

Q.136 How does experiential learning benefit students' understanding of complex topics?

अनुभवात्मक अधिगम जटिल विषयों की विद्यार्थियों की समझ को कैसे लाभ पहुँचाता है?

(1) It makes students depend on peer explanations only / यह विद्यार्थियों को केवल साथियों की व्याख्याओं पर निर्भर बनाता है

(2) It focuses mainly on test-taking strategies / यह मुख्य रूप से परीक्षा देने की रणनीतियों पर केंद्रित है

(3) It requires students to memorize information quickly / इसमें विद्यार्थियों को जानकारी शीघ्रता से कंठस्थ करनी होती है

(4) **It allows students to actively engage and reflect on real experiences / यह विद्यार्थियों को वास्तविक अनुभवों में सक्रिय रूप से संलग्न होने और उन पर चिंतन करने का अवसर देता है ✔**

Q.137 Which concept refers to the process by which individuals learn to become members of community?

कौन-सी अवधारणा उस प्रक्रिया को संदर्भित करती है जिसके द्वारा व्यक्ति समुदाय के सदस्य बनना सीखते हैं?

(1) **Socialization / समाजीकरण ✔**

(2) Education society / शिक्षा समाज

(3) Instruction / अनुदेशन

(4) Curriculum / पाठ्यचर्या

Q.138 How does language use outside the classroom support students' overall learning?

कक्षा के बाहर भाषा का प्रयोग विद्यार्थियों के समग्र अधिगम में किस प्रकार सहायता करता है?

(1) It is used mainly for casual conversations without contributing to academic growth / इसका उपयोग मुख्य रूप से शैक्षणिक विकास में योगदान दिए बिना अनौपचारिक बातचीत के लिए किया जाता है

(2) **It helps students apply classroom knowledge and develop effective communication skills / यह विद्यार्थियों को कक्षा के ज्ञान को लागू करने और प्रभावी संप्रेषण कौशल विकसित करने में सहायता करता है ✔**

(3) It only allows students to repeat classroom lessons without additional understanding / यह विद्यार्थियों को बिना अतिरिक्त समझ के केवल कक्षा के पाठ दोहराने देता है

(4) It replaces classroom instruction entirely and encourages independent learning only / यह कक्षा अनुदेशन का पूर्णतः स्थान ले लेता है और केवल स्वतंत्र अधिगम को प्रोत्साहित करता है

Q.139 What maxim should a teacher prioritize when introducing abstract scientific concepts to first-year students?

प्रथम वर्ष के विद्यार्थियों को अमूर्त वैज्ञानिक अवधारणाओं से परिचित कराते समय शिक्षक को किस शिक्षण सूत्र को प्राथमिकता देनी चाहिए?

(1) From easy to difficult / सरल से कठिन की ओर

(2) **From concrete to abstract / मूर्त से अमूर्त की ओर ✔**

(3) From general to particular / सामान्य से विशिष्ट की ओर

(4) From whole to part / पूर्ण से अंश की ओर

Q.140 Frequent internships in higher education help assess:

उच्च शिक्षा में बार-बार होने वाली इंटर्नशिप किसका आकलन करने में सहायता करती हैं:

(1) Theoretical knowledge only / केवल सैद्धांतिक ज्ञान

(2) Only participation in classroom discussions / केवल कक्षा चर्चाओं में भागीदारी

(3) Students' ability to memorize case studies / केस स्टडी कंठस्थ करने की विद्यार्थियों की क्षमता

(4) **Real-world application of learning and skills / अधिगम और कौशलों का वास्तविक जीवन में अनुप्रयोग ✔**

Q.141 In a lesson about area and perimeter, a child suggests covering a desk with equal- sized tiles to find out how 'big' the desk is. Which mathematical concept is the child intuitively applying, and how should the teacher extend this activity to introduce the concept of unit?

क्षेत्रफल और परिमाप के एक पाठ में, एक बच्चा सुझाव देता है कि डेस्क कितनी 'बड़ी' है, यह जानने के लिए उसे समान आकार की टाइलों से ढक दिया जाए। बच्चा सहज रूप से किस गणितीय अवधारणा को लागू कर रहा है, और इकाई की अवधारणा प्रस्तुत करने के लिए शिक्षक को इस गतिविधि का विस्तार कैसे करना चाहिए?

(1) The child is applying length measurement; the teacher should use a tape to measure sides / बच्चा लंबाई मापन लागू कर रहा है; शिक्षक को भुजाएँ मापने के लिए फीते का उपयोग करना चाहिए

(2) The child is applying volume measurement; the teacher should stack tiles for depth / बच्चा आयतन मापन लागू कर रहा है; शिक्षक को गहराई के लिए टाइलें एक के ऊपर एक रखनी चाहिए

(3) The child is applying perimeter measurement; the teacher should count the edges of the desk / बच्चा परिमाप मापन लागू कर रहा है; शिक्षक को डेस्क के किनारों की गिनती करनी चाहिए

(4) **The child is applying area measurement; the teacher should emphasize use of same- sized tiles as units / बच्चा क्षेत्रफल मापन लागू कर रहा है; शिक्षक को इकाई के रूप में समान आकार की टाइलों के उपयोग पर बल देना चाहिए ✔**

Q.142 When a neutral stimulus becomes associated with a response due to repeated pairing with a reward, this learning process is called:

जब पुरस्कार के साथ बार-बार युग्मन के कारण एक तटस्थ उद्दीपक किसी अनुक्रिया से संबद्ध हो जाता है, तो इस अधिगम प्रक्रिया को कहा जाता है:

(1) Trial and error learning / प्रयास और त्रुटि अधिगम

(2) **Classical conditioning / शास्त्रीय अनुबंधन ✔**

(3) Insight learning / अंतर्दृष्टि अधिगम

(4) Operant conditioning / क्रियाप्रसूत अनुबंधन

Q.143 What is a common impact of television advertising on children and adults?

बच्चों और वयस्कों पर टेलीविज़न विज्ञापन का एक सामान्य प्रभाव क्या है?

(1) **Influences their attitudes, preferences, and buying behavior through repeated messages / बार-बार दिए गए संदेशों के माध्यम से उनकी अभिवृत्तियों, पसंद और क्रय व्यवहार को प्रभावित करता है ✔**

(2) Encourages critical thinking and independent evaluation of all advertised products / सभी विज्ञापित उत्पादों के आलोचनात्मक चिंतन और स्वतंत्र मूल्यांकन को प्रोत्साहित करता है

(3) Focuses only on educational content without affecting lifestyle or choices / जीवनशैली या विकल्पों को प्रभावित किए बिना केवल शैक्षिक सामग्री पर केंद्रित रहता है

(4) Reduces exposure to consumer culture and limits commercial influences entirely / उपभोक्ता संस्कृति के संपर्क को कम करता है और व्यावसायिक प्रभावों को पूर्णतः सीमित करता है

Q.144 Why is English considered a global language today?

आज अंग्रेज़ी को वैश्विक भाषा क्यों माना जाता है?

(1) It is only spoken in England and has no relevance in other countries / यह केवल इंग्लैंड में बोली जाती है और अन्य देशों में इसकी कोई प्रासंगिकता नहीं है

(2) It replaces all local languages in every country around the world / यह विश्व के प्रत्येक देश में सभी स्थानीय भाषाओं का स्थान ले लेती है

(3) It is widely used in international communication, business, science, and education / इसका अंतरराष्ट्रीय संप्रेषण, व्यापार, विज्ञान और शिक्षा में व्यापक रूप से उपयोग होता है ✔

(4) It is used solely for literature studies without practical applications / इसका उपयोग बिना व्यावहारिक अनुप्रयोगों के केवल साहित्य अध्ययन के लिए होता है

Q.145 A school regularly reviews students' academic progress, attendance, and overall development to improve teaching practices. Which concept is best reflected by this practice?

एक विद्यालय शिक्षण पद्धतियों में सुधार के लिए विद्यार्थियों की शैक्षणिक प्रगति, उपस्थिति और समग्र विकास की नियमित रूप से समीक्षा करता है। इस प्रथा द्वारा कौन-सी अवधारणा सबसे अच्छी तरह प्रतिबिंबित होती है?

(1) Administrative control / प्रशासनिक नियंत्रण

(2) Curriculum rigidity / पाठ्यचर्या की कठोरता

(3) School effectiveness / विद्यालय प्रभावशीलता ✔

(4) School discipline / विद्यालय अनुशासन

Q.146 Which of the following best describes a factor that commonly shapes gendered roles in India?

निम्नलिखित में से कौन-सा उस कारक का सबसे अच्छा वर्णन करता है जो सामान्यतः भारत में लैंगिक भूमिकाओं को आकार देता है?

(1) Economic policies and laws / आर्थिक नीतियाँ और कानून

(2) Religious beliefs and rituals / धार्मिक मान्यताएँ और अनुष्ठान

(3) Cultural traditions and family norms / सांस्कृतिक परंपराएँ और पारिवारिक मानदंड ✔

(4) Climate conditions and geography / जलवायु दशाएँ और भूगोल

Q.147 During a group activity, one student with high intelligence but poor emotional well- being consistently underperforms compared to peers. Which factor is most likely impeding their learning in this context?

एक समूह गतिविधि के दौरान, उच्च बुद्धि किंतु निम्न संवेगात्मक कल्याण वाला एक विद्यार्थी अपने साथियों की तुलना में लगातार कम प्रदर्शन करता है। इस संदर्भ में कौन-सा कारक उसके अधिगम में सबसे अधिक बाधा डाल रहा है?

(1) Lack of prior knowledge hindering schema building / पूर्व ज्ञान का अभाव जो स्कीमा निर्माण में बाधा डालता है

(2) Limited access to instructional strategies / अनुदेशनात्मक रणनीतियों तक सीमित पहुँच

(3) Classroom seating arrangement / कक्षा में बैठने की व्यवस्था

(4) Emotional health affecting cognitive processing / संज्ञानात्मक प्रसंस्करण को प्रभावित करने वाला संवेगात्मक स्वास्थ्य ✔

Q.148 During the annual conference, each of the participating members, as well as the committee chairpersons, _____ expected to submit their reports by Friday afternoon to facilitate the audit process.

(1) are

(2) have been

(3) is ✔

(4) were

Q.149 A Grade 2 child successfully calculates 35−27=8 using column subtraction but estimates 14+23 as 95. This performance disparity indicates a fundamental weakness in:

कक्षा 2 का एक बच्चा स्तंभ व्यवकलन का उपयोग करके 35−27=8 की सफलतापूर्वक गणना करता है, लेकिन 14+23 का अनुमान 95 लगाता है। प्रदर्शन में यह असमानता किसमें एक मूलभूत कमज़ोरी को इंगित करती है?

(1) Symbolic notation usage / प्रतीकात्मक संकेतन का उपयोग

(2) Conceptual understanding mastery / संकल्पनात्मक समझ पर प्रवीणता

(3) Arithmetic fact recall / अंकगणितीय तथ्यों का स्मरण ✔

(4) Procedural algorithmic fluency / प्रक्रियात्मक एल्गोरिथमिक प्रवाह

Q.150 A primary school teacher is designing an assessment. She wants to include a question about collective nouns. Which sentence below correctly demonstrates subject–verb agreement for a collective noun acting as a single unit?

एक प्राथमिक विद्यालय की शिक्षिका एक मूल्यांकन तैयार कर रही है। वह समूहवाचक संज्ञाओं (collective nouns) पर एक प्रश्न शामिल करना चाहती है। नीचे दिया गया कौन-सा वाक्य एकल इकाई के रूप में कार्य करने वाली समूहवाचक संज्ञा के लिए कर्ता-क्रिया अन्विति (subject–verb agreement) को सही ढंग से प्रदर्शित करता है?

(1) The team was winning the match.

(2) The team are winning the match.

(3) The team is winning the match. ✔

(4) The team have winning the match.

Q.151 What collaborative attitude aligns with NEP vision for facilitators?

सुगमकर्ताओं के लिए NEP के दृष्टिकोण के अनुरूप कौन-सी सहयोगात्मक अभिवृत्ति है?

(1) Hierarchical delegation assigning roles based on perceived ability ranks. / कथित योग्यता श्रेणियों के आधार पर भूमिकाएँ सौंपने वाला पदानुक्रमित प्रत्यायोजन।

(2) Independent tasks minimizing interactions to deepen individual focus areas. / व्यक्तिगत फोकस क्षेत्रों को गहन करने के लिए अंतःक्रियाओं को न्यूनतम करने वाले स्वतंत्र कार्य।

(3) Expert modeling demonstrating ideal responses for imitation by groups. / समूहों द्वारा अनुकरण के लिए आदर्श प्रतिक्रियाओं को प्रदर्शित करने वाला विशेषज्ञ प्रतिरूपण।

(4) Co-creating knowledge through peer dialogue and shared ownership models. / सहपाठी संवाद और साझा स्वामित्व मॉडलों के माध्यम से ज्ञान का सह-सृजन। ✔

Q.152 Designing a school "from scratch" means:

किसी विद्यालय को "शून्य से" अभिकल्पित करने का अर्थ है:

(1) Adding new activities while keeping the basic school system unchanged / मूल विद्यालय प्रणाली को अपरिवर्तित रखते हुए नई गतिविधियाँ जोड़ना

(2) Keeping traditional school practices without reviewing their purpose / पारंपरिक विद्यालय प्रथाओं के उद्देश्य की समीक्षा किए बिना उन्हें बनाए रखना

(3) Using standard curriculum models without changing existing structures / मौजूदा संरचनाओं को बदले बिना मानक पाठ्यचर्या मॉडलों का उपयोग करना

(4) Setting clear goals first and redesigning all parts of schooling to meet them / पहले स्पष्ट लक्ष्य निर्धारित करना और उन्हें पूरा करने के लिए विद्यालयी शिक्षा के सभी भागों को पुनः अभिकल्पित करना ✔

Q.153 What is the primary objective of NGOs in school governance?

विद्यालय शासन में NGOs का प्राथमिक उद्देश्य क्या है?

(1) They focus solely on political activities / वे केवल राजनीतिक गतिविधियों पर केंद्रित होते हैं

(2) They promote sustainable development / वे सतत विकास को बढ़ावा देते हैं ✔

(3) They are government-owned organizations / वे सरकारी स्वामित्व वाले संगठन हैं

(4) They only work in urban areas / वे केवल शहरी क्षेत्रों में कार्य करते हैं

Q.154 Which of the following is the human sexual behaviour that follows a social script that is embedded in societal expectations and norms?

निम्नलिखित में से कौन-सा वह मानव यौन व्यवहार है जो सामाजिक अपेक्षाओं और मानदंडों में निहित एक सामाजिक स्क्रिप्ट का अनुसरण करता है?

(1) Sexual script / यौन स्क्रिप्ट ✔

(2) Interpersonal script / अंतर्वैयक्तिक स्क्रिप्ट

(3) Gender script / लैंगिक स्क्रिप्ट

(4) Intrapsychic script / अंतःमानसिक स्क्रिप्ट

Q.155 A child uses paper boxes as "cars," assigns peers as "drivers," establishes simple traffic rules, and oversees the roadway setup. This situation reflects:

एक बच्चा कागज़ के डिब्बों को "कारों" के रूप में उपयोग करता है, साथियों को "चालक" नियुक्त करता है, सरल यातायात नियम बनाता है और सड़क व्यवस्था की देखरेख करता है। यह स्थिति दर्शाती है:

(1) Functional play carried out under direct teacher guidance / शिक्षक के प्रत्यक्ष मार्गदर्शन में किया गया कार्यात्मक खेल

(2) Exploratory play undertaken independently without group interaction / समूह अंतःक्रिया के बिना स्वतंत्र रूप से किया गया अन्वेषणात्मक खेल

(3) A combined form of symbolic play and early games-with-rules behaviour / प्रतीकात्मक खेल और आरंभिक नियमबद्ध खेल व्यवहार का एक संयुक्त रूप ✔

(4) Symbolic play occurring without meaningful social involvement / सार्थक सामाजिक भागीदारी के बिना होने वाला प्रतीकात्मक खेल

Q.156 Which statement correctly describes the spread of English as a global language?

कौन-सा कथन वैश्विक भाषा के रूप में अंग्रेज़ी के प्रसार का सही वर्णन करता है?

(1) English serves as a common language among diverse speakers / अंग्रेज़ी विविध वक्ताओं के बीच एक साझा भाषा के रूप में कार्य करती है ✔

(2) English is the only global language / अंग्रेज़ी एकमात्र वैश्विक भाषा है

(3) Everyone in the world speaks English as their first language / विश्व में हर कोई अंग्रेज़ी को अपनी प्रथम भाषा के रूप में बोलता है

(4) English is the official language in every country / अंग्रेज़ी प्रत्येक देश की आधिकारिक भाषा है

Q.157 Which personal quality is foundational for an educator, seeking to establish an objective and unbiased relationship, thereby preventing the unconscious use of stereotypes?

वस्तुनिष्ठ और निष्पक्ष संबंध स्थापित करने का प्रयास करने वाले, और इस प्रकार रूढ़ियों के अचेतन उपयोग को रोकने वाले शिक्षक के लिए कौन-सा व्यक्तिगत गुण मूलभूत है?

(1) Genuine Empathy / वास्तविक समानुभूति ✔

(2) Subject Matter Mastery / विषय-वस्तु पर प्रवीणता

(3) Professional Humour / व्यावसायिक हास्य

(4) Organizational Clarity / संगठनात्मक स्पष्टता

Q.158 A key concern regarding television advertising aimed at children is that it:

बच्चों को लक्षित टेलीविज़न विज्ञापन के संबंध में एक प्रमुख चिंता यह है कि यह:

(1) Develops independent thinking skills / स्वतंत्र चिंतन कौशल विकसित करता है

(2) **Encourages materialistic values and desires / भौतिकवादी मूल्यों और इच्छाओं को प्रोत्साहित करता है ✔**

(3) Improves nutritional awareness reliably / पोषण संबंधी जागरूकता में विश्वसनीय रूप से सुधार करता है

(4) Promotes physical activity consistently / शारीरिक गतिविधि को निरंतर बढ़ावा देता है

Q.159 A primary teacher is designing a classroom activity where students must estimate the number of seeds in a watermelon before counting. This task is most aligned with which objective of teaching mathematics at the elementary stage?

एक प्राथमिक शिक्षक कक्षा की एक गतिविधि तैयार कर रहा है जिसमें विद्यार्थियों को गिनती से पहले एक तरबूज़ में बीजों की संख्या का अनुमान लगाना है। यह कार्य प्रारंभिक स्तर पर गणित शिक्षण के किस उद्देश्य के साथ सबसे अधिक संरेखित है?

(1) Assessment of proof-writing abilities / उपपत्ति-लेखन क्षमताओं का आकलन

(2) Knowledge acquisition through memorizing facts / तथ्यों को कंठस्थ करके ज्ञानार्जन

(3) **Skill-building with emphasis on estimation and reasoning / अनुमान और तर्क पर बल देते हुए कौशल-निर्माण ✔**

(4) Attitudinal development towards collaborative work / सहयोगात्मक कार्य के प्रति अभिवृत्तिगत विकास

Q.160 A 4-year-old builds a block tower while commenting to herself about stability and balance, occasionally watching peers but not engaging them. Which classification best captures this play episode?

एक 4 वर्षीय बच्ची स्थिरता और संतुलन के बारे में स्वयं से बातें करते हुए ब्लॉकों की मीनार बनाती है, कभी-कभी साथियों को देखती है किंतु उनसे जुड़ती नहीं। कौन-सा वर्गीकरण इस खेल प्रसंग को सबसे अच्छी तरह दर्शाता है?

(1) **Parten: Parallel; Piaget: Constructive play; Vygotsky: Self-guided private speech / पार्टेन: समानांतर; पियाजे: रचनात्मक खेल; वाइगोत्स्की: स्व-निर्देशित निजी वाक् ✔**

(2) Parten: Solitary; Piaget: Practice play; Vygotsky: Other-regulation / पार्टेन: एकाकी; पियाजे: अभ्यास खेल; वाइगोत्स्की: अन्य-नियमन

(3) Parten: Onlooker; Piaget: Symbolic play; Vygotsky: Private speech scaffolding / पार्टेन: दर्शक; पियाजे: प्रतीकात्मक खेल; वाइगोत्स्की: निजी वाक् पाड़

(4) Parten: Cooperative; Piaget: Games with rules; Vygotsky: Zone of proximal development / पार्टेन: सहयोगात्मक; पियाजे: नियमबद्ध खेल; वाइगोत्स्की: समीपस्थ विकास का क्षेत्र

Q.161 In formative writing assessment per NEP 2020 influences, what role do peer conferences play alongside teacher feedback in primary classrooms?

NEP 2020 के प्रभावों के अनुसार रचनात्मक लेखन मूल्यांकन में, प्राथमिक कक्षाओं में शिक्षक की प्रतिपुष्टि के साथ-साथ सहपाठी परिचर्चाएँ क्या भूमिका निभाती हैं?

(1) Enforce uniform grading without individual reflection / व्यक्तिगत चिंतन के बिना एकसमान ग्रेडिंग लागू करना

(2) Replace teacher evaluation to reduce workload entirely / कार्यभार को पूर्णतः कम करने के लिए शिक्षक मूल्यांकन का स्थान लेना

(3) **Expose learners to diverse styles fostering self-correction / शिक्षार्थियों को विविध शैलियों से परिचित कराकर स्व-सुधार को बढ़ावा देना ✔**

(4) Limit focus to mechanical errors without content review / विषय-वस्तु की समीक्षा के बिना ध्यान को यांत्रिक त्रुटियों तक सीमित रखना

Q.162 What is the main purpose of micro-teaching in teacher education?

शिक्षक शिक्षा में सूक्ष्म-शिक्षण का मुख्य उद्देश्य क्या है?

(1) To replace full classroom teaching with pre-recorded lessons for students / विद्यार्थियों के लिए पूर्ण कक्षा शिक्षण के स्थान पर पूर्व-रिकॉर्ड किए गए पाठ उपलब्ध कराना

(2) To test students' knowledge using short exercises and written assignments / लघु अभ्यासों और लिखित कार्यों का उपयोग करके विद्यार्थियों के ज्ञान का परीक्षण करना

(3) To allow teachers to practice specific skills in a controlled environment / शिक्षकों को नियंत्रित वातावरण में विशिष्ट कौशलों का अभ्यास करने का अवसर देना ✔

(4) To complete administrative tasks related to classroom management efficiently / कक्षा प्रबंधन से संबंधित प्रशासनिक कार्यों को कुशलतापूर्वक पूरा करना

Q.163 According to the first principle of interactive language teaching, who is primarily responsible for language learning?

अंतःक्रियात्मक भाषा शिक्षण के प्रथम सिद्धांत के अनुसार, भाषा अधिगम के लिए मुख्य रूप से कौन उत्तरदायी है?

(1) The textbook author / पाठ्यपुस्तक लेखक

(2) The teacher / शिक्षक

(3) The student / विद्यार्थी ✔

(4) The curriculum designer / पाठ्यचर्या निर्माता

Q.164 In what way should a textbook's design cater to its intended age group?

पाठ्यपुस्तक का अभिकल्प उसके लक्षित आयु वर्ग के अनुरूप किस प्रकार होना चाहिए?

(1) It should match the learners' age and developmental level / यह शिक्षार्थियों की आयु और विकासात्मक स्तर के अनुरूप होना चाहिए ✔

(2) It should consider developmental stages only at primary level. / इसमें केवल प्राथमिक स्तर पर विकासात्मक अवस्थाओं पर विचार किया जाना चाहिए।

(3) It should mimic higher education textbooks only. / इसे केवल उच्च शिक्षा की पाठ्यपुस्तकों की नकल करनी चाहिए।

(4) It should use advanced language throughout. / इसमें आद्योपांत उन्नत भाषा का प्रयोग होना चाहिए।

Q.165 A school with strong leadership, clear vision, and consistent evaluation practices would most likely show which result in effectiveness measurement?

सशक्त नेतृत्व, स्पष्ट दृष्टि और सुसंगत मूल्यांकन प्रथाओं वाला विद्यालय प्रभावशीलता मापन में संभवतः कौन-सा परिणाम दर्शाएगा?

(1) More sports trophies / अधिक खेल ट्रॉफियाँ

(2) Increased lunch breaks / भोजनावकाश में वृद्धि

(3) Improved student performance / विद्यार्थियों के प्रदर्शन में सुधार ✔

(4) Longer school hours / विद्यालय के लंबे घंटे

Q.166 Which approach most effectively promotes both equality and justice in a diverse classroom setting?

विविधतापूर्ण कक्षा परिवेश में कौन-सा उपागम समानता और न्याय दोनों को सबसे प्रभावी ढंग से बढ़ावा देता है?

(1) Adapting instruction to student needs / विद्यार्थियों की आवश्यकताओं के अनुसार अनुदेशन को अनुकूलित करना ✔

(2) Measuring progress only by group averages / प्रगति को केवल समूह औसत से मापना

(3) Using the same assessments for all students / सभी विद्यार्थियों के लिए समान मूल्यांकन का उपयोग करना

(4) Following majority cultural norms in lessons / पाठों में बहुसंख्यक सांस्कृतिक मानदंडों का पालन करना

Q.167 A teacher is designing a lesson on describing family members with adjectives for Class 3. To adhere to curriculum alignment, what should the teacher do while planning the session?

एक शिक्षक कक्षा 3 के लिए विशेषणों के साथ परिवार के सदस्यों का वर्णन करने पर एक पाठ तैयार कर रहा है। पाठ्यचर्या संरेखण का पालन करने के लिए, सत्र की योजना बनाते समय शिक्षक को क्या करना चाहिए?

(1) List general aims without linking to outcomes / परिणामों से जोड़े बिना सामान्य लक्ष्यों की सूची बनाना

(2) Plan activities based on teacher preferences / शिक्षक की पसंद के आधार पर गतिविधियों की योजना बनाना

(3) Map each activity to the stated learning outcomes / प्रत्येक गतिविधि को निर्धारित अधिगम परिणामों से जोड़ना ✔

(4) Focus solely on textbook exercises / केवल पाठ्यपुस्तक के अभ्यासों पर ध्यान केंद्रित करना

Q.168 Primary pedagogy studies on TLM availability highlight low-cost/no-cost usage in what EVS skill domain beyond science lab equipment?

TLM की उपलब्धता पर प्राथमिक शिक्षणशास्त्र के अध्ययन विज्ञान प्रयोगशाला उपकरणों से परे पर्यावरण अध्ययन (EVS) के किस कौशल क्षेत्र में कम-लागत/बिना-लागत उपयोग को रेखांकित करते हैं?

(1) Advanced Lab Apparatus: Prioritizing Chemical Reactions Surpassing Household Discard Observation Protocols, Theme-Wise Quarterly. / उन्नत प्रयोगशाला उपकरण: घरेलू अनुपयोगी वस्तुओं के अवलोकन प्रोटोकॉल से बढ़कर रासायनिक अभिक्रियाओं को प्राथमिकता, विषयवार त्रैमासिक।

(2) Elementary science pedagogy: Utilizing household discards for observation, inference and experimentation to foster process skill development holistically. / प्रारंभिक विज्ञान शिक्षणशास्त्र: प्रक्रिया कौशलों के समग्र विकास को बढ़ावा देने के लिए अवलोकन, अनुमान और प्रयोग हेतु घरेलू अनुपयोगी वस्तुओं का उपयोग। ✔

(3) Textbook diagrams : Integrating purchased models, exceeding household material inference and experimentation capabilities district-wide. / पाठ्यपुस्तक आरेख : घरेलू सामग्री की अनुमान और प्रयोग क्षमताओं से बढ़कर खरीदे गए मॉडलों का एकीकरण, ज़िला-व्यापी।

(4) Commercial Science Kits:Focusing Data Analysis Silos Aligned with National Syllabus Benchmarks, Beyond Elementary Process Skills—Annually. / व्यावसायिक विज्ञान किट: राष्ट्रीय पाठ्यक्रम मानदंडों के अनुरूप पृथक डेटा विश्लेषण पर केंद्रित, प्रारंभिक प्रक्रिया कौशलों से परे—वार्षिक।

Q.169 What is the main purpose of a Social Studies textbook in education?

शिक्षा में सामाजिक अध्ययन की पाठ्यपुस्तक का मुख्य उद्देश्य क्या है?

(1) To provide knowledge and develop understanding of society / ज्ञान प्रदान करना और समाज की समझ विकसित करना ✔

(2) To focus exclusively on mathematical and scientific concepts / केवल गणितीय और वैज्ञानिक अवधारणाओं पर ध्यान केंद्रित करना

(3) To replace classroom teaching and learning activities entirely / कक्षा शिक्षण और अधिगम गतिविधियों का पूर्णतः स्थान लेना

(4) To teach only historical facts without any connections / बिना किसी संबंध के केवल ऐतिहासिक तथ्य पढ़ाना

Q.170 Which of the following is NOT a source for low-cost / no-cost learning materials?

निम्नलिखित में से कौन-सा कम-लागत / बिना-लागत अधिगम सामग्री का स्रोत नहीं है?

(1) Expensive store-bought science kits / दुकान से खरीदी गई महँगी विज्ञान किट ✔

(2) Recycled items like bottle caps and cartons / बोतल के ढक्कन और डिब्बे जैसी पुनर्चक्रित वस्तुएँ

(3) Natural items like leaves and clay / पत्तियाँ और मिट्टी जैसी प्राकृतिक वस्तुएँ

(4) Household items like tools and food / औज़ार और भोजन जैसी घरेलू वस्तुएँ

Q.171 Which scenario best illustrates distributed leadership in school administration rather than centralized, hierarchical control?

कौन-सा परिदृश्य केंद्रीकृत, पदानुक्रमित नियंत्रण के बजाय विद्यालय प्रशासन में वितरित नेतृत्व को सबसे अच्छी तरह दर्शाता है?

(1) Subject heads lead curriculum teams with decision authority / विषय प्रमुख निर्णय लेने के अधिकार के साथ पाठ्यचर्या टीमों का नेतृत्व करते हैं ✔

(2) Principal personally chairs every committee meeting / प्रधानाचार्य स्वयं प्रत्येक समिति बैठक की अध्यक्षता करते हैं

(3) Administrative tasks are delegated but decisions are retained / प्रशासनिक कार्य सौंपे जाते हैं परंतु निर्णय अपने पास रखे जाते हैं

(4) All major decisions are routed only through the principal / सभी प्रमुख निर्णय केवल प्रधानाचार्य के माध्यम से भेजे जाते हैं

Q.172 Assessing a student's ability to rationally justify complex policy decisions requires using:

जटिल नीतिगत निर्णयों को तर्कसंगत रूप से उचित ठहराने की विद्यार्थी की क्षमता का आकलन करने के लिए किसका उपयोग आवश्यक है:

(1) Criterion-referenced tests / निकष-संदर्भित परीक्षण

(2) Objective multiple-choice questions / वस्तुनिष्ठ बहुविकल्पीय प्रश्न

(3) Factual recall questions / तथ्यात्मक स्मरण प्रश्न

(4) Constructed-response items / निर्मित-अनुक्रिया प्रश्न ✔

Q.173 Choosing scrap materials over purchased Teaching–Learning Material (TLMs) for model preparation primarily analyzes the promotion of:

मॉडल निर्माण के लिए खरीदी गई शिक्षण–अधिगम सामग्री (TLMs) के स्थान पर रद्दी सामग्री का चयन मुख्य रूप से किसके संवर्धन का विश्लेषण करता है:

(1) Reduced cognitive complexity / कम संज्ञानात्मक जटिलता

(2) Standardized content delivery / मानकीकृत विषय-वस्तु प्रस्तुति

(3) Enhanced material durability / सामग्री की बढ़ी हुई टिकाऊपन

(4) Attitudinal commitment/ownership / अभिवृत्तिगत प्रतिबद्धता/स्वामित्व ✔

Q.174 To align with National Curriculum Framework (NCF 2005) guidelines, a social science textbook must primarily function as a:

राष्ट्रीय पाठ्यचर्या रूपरेखा (NCF 2005) के दिशानिर्देशों के अनुरूप होने के लिए, सामाजिक विज्ञान की पाठ्यपुस्तक को मुख्य रूप से किस रूप में कार्य करना चाहिए:

(1) Disciplinary guideline / अनुशासनात्मक दिशानिर्देश

(2) Content repository / विषय-वस्तु भंडार

(3) Mandatory knowledge source / अनिवार्य ज्ञान स्रोत

(4) Suggestive learning resource / सुझावात्मक अधिगम संसाधन ✔

Q.175 An important characteristic of school leaders in managing change is:

परिवर्तन के प्रबंधन में विद्यालय प्रमुखों की एक महत्वपूर्ण विशेषता है:

(1) Limiting knowledge sharing to senior staff only / ज्ञान साझाकरण को केवल वरिष्ठ कर्मचारियों तक सीमित रखना

(2) Avoiding new ideas to maintain consistency / निरंतरता बनाए रखने के लिए नए विचारों से बचना

(3) Focusing solely on individual achievements / केवल व्यक्तिगत उपलब्धियों पर ध्यान केंद्रित करना

(4) Fostering collaboration among all members / सभी सदस्यों के बीच सहयोग को बढ़ावा देना ✔

Q.176 Which best shows why Social Science education matters?

कौन-सा विकल्प सबसे अच्छी तरह दर्शाता है कि सामाजिक विज्ञान शिक्षा क्यों महत्वपूर्ण है?

(1) Lab practice / प्रयोगशाला अभ्यास

(2) **Critical thinking / आलोचनात्मक चिंतन ✔**

(3) Recall dates / तिथियाँ याद करना

(4) Neat writing / सुंदर लेखन

Q.177 Which of the following is an appropriate ICT tool for teaching listening skills in English at the primary level?

प्राथमिक स्तर पर अंग्रेज़ी में श्रवण कौशल पढ़ाने के लिए निम्नलिखित में से कौन-सा उपयुक्त ICT उपकरण है?

(1) **Audio stories and rhymes / ऑडियो कहानियाँ और कविताएँ ✔**

(2) Blackboard explanations / श्यामपट्ट पर व्याख्या

(3) Printed worksheets / मुद्रित कार्यपत्रक

(4) Grammar rule charts / व्याकरण नियम चार्ट

Q.178 Which ICT resources help in understanding complex linguistic concepts?

कौन-से ICT संसाधन जटिल भाषायी अवधारणाओं को समझने में सहायता करते हैं?

(1) Email, messaging apps, and discussion forums / ईमेल, मैसेजिंग ऐप और चर्चा मंच

(2) **Simulations, multimedia content, and virtual labs / सिमुलेशन, मल्टीमीडिया सामग्री और वर्चुअल लैब ✔**

(3) Word processors and basic typing software / वर्ड प्रोसेसर और बुनियादी टाइपिंग सॉफ़्टवेयर

(4) Online dictionaries and spell-check tools only / केवल ऑनलाइन शब्दकोश और वर्तनी-जाँच उपकरण

Q.179 A teacher using the grammar translation method assigns students to translate a literary excerpt and identify all instances of passive voice. What dual objective is being targeted in this activity?

व्याकरण अनुवाद विधि का उपयोग करने वाला एक शिक्षक विद्यार्थियों को एक साहित्यिक अंश का अनुवाद करने और कर्मवाच्य के सभी उदाहरणों की पहचान करने का कार्य देता है। इस गतिविधि में किस दोहरे उद्देश्य को लक्षित किया जा रहा है?

(1) Improving students' speaking ability and pronunciation through oral practice / मौखिक अभ्यास के माध्यम से विद्यार्थियों की बोलने की क्षमता और उच्चारण में सुधार करना

(2) Developing learners' ability to speak fluently and spontaneously in real-life situations / वास्तविक जीवन की स्थितियों में धाराप्रवाह और सहज रूप से बोलने की शिक्षार्थियों की क्षमता विकसित करना

(3) Encouraging understanding of cultural background and literary context of the text / पाठ की सांस्कृतिक पृष्ठभूमि और साहित्यिक संदर्भ की समझ को प्रोत्साहित करना

(4) **Strengthening grammatical analysis skills while practicing accurate translation of the text / पाठ के सटीक अनुवाद का अभ्यास करते हुए व्याकरणिक विश्लेषण कौशलों को सुदृढ़ करना ✔**

Q.180 According to the National Curriculum Framework (2005), what should be integrated as environmental studies at the primary level?

राष्ट्रीय पाठ्यचर्या रूपरेखा (2005) के अनुसार, प्राथमिक स्तर पर पर्यावरण अध्ययन के रूप में किसे एकीकृत किया जाना चाहिए?

(1) Physical education and art / शारीरिक शिक्षा और कला

(2) Languages and mathematics / भाषाएँ और गणित

(3) Mathematics and art / गणित और कला

(4) **Science and social science / विज्ञान और सामाजिक विज्ञान ✔**

Q.181 Which term refers to students who require additional support due to physical, emotional, or learning challenges?

कौन-सा शब्द उन विद्यार्थियों को संदर्भित करता है जिन्हें शारीरिक, संवेगात्मक या अधिगम संबंधी चुनौतियों के कारण अतिरिक्त सहायता की आवश्यकता होती है?

(1) Bilingual students / द्विभाषी विद्यार्थी

(2) **Children with Special Needs / विशेष आवश्यकता वाले बच्चे ✔**

(3) Gifted learners / प्रतिभाशाली शिक्षार्थी

(4) Average achievers / औसत उपलब्धि वाले

Q.182 Science kits address the critical need in schools lacking laboratory facilities by enabling which essential pedagogical practice?

विज्ञान किट किस आवश्यक शिक्षणशास्त्रीय प्रथा को संभव बनाकर प्रयोगशाला सुविधाओं से रहित विद्यालयों की महत्वपूर्ण आवश्यकता को पूरा करती हैं?

(1) Standardized testing with theoretical questions only for assessment / मूल्यांकन के लिए केवल सैद्धांतिक प्रश्नों के साथ मानकीकृत परीक्षण

(2) Teacher-led lectures supplemented by textbook illustrations alone / केवल पाठ्यपुस्तक चित्रों द्वारा पूरित शिक्षक-केंद्रित व्याख्यान

(3) **Hands-on experimentation without requiring permanent infrastructure / स्थायी अवसंरचना की आवश्यकता के बिना प्रत्यक्ष प्रयोग ✔**

(4) Group memorization sessions focused on scientific terminology recall / वैज्ञानिक शब्दावली के स्मरण पर केंद्रित सामूहिक रटने के सत्र

Q.183 Which of the following promotes equal opportunities for boys and girls in schools?

निम्नलिखित में से कौन-सा विद्यालयों में लड़कों और लड़कियों के लिए समान अवसरों को बढ़ावा देता है?

(1) Gender-specific textbooks only / केवल लिंग-विशिष्ट पाठ्यपुस्तकें

(2) **Gender-sensitive teaching materials / लैंगिक रूप से संवेदनशील शिक्षण सामग्री ✔**

(3) Separate playgrounds for boys and girls / लड़कों और लड़कियों के लिए अलग-अलग खेल के मैदान

(4) Restricting girls from certain subjects / लड़कियों को कुछ विषयों से वंचित करना

Q.184 Which of the following is an example of exclusion in Indian education?

निम्नलिखित में से कौन-सा भारतीय शिक्षा में अपवर्जन का एक उदाहरण है?

(1) **Providing support for students from diverse backgrounds / विविध पृष्ठभूमि के विद्यार्थियों को सहायता प्रदान करना ✔**

(2) Admitting all children regardless of background / पृष्ठभूमि की परवाह किए बिना सभी बच्चों को प्रवेश देना

(3) Refusing admission to children with disabilities / दिव्यांग बच्चों को प्रवेश देने से इनकार करना

(4) Using varied teaching methods to support all learners / सभी शिक्षार्थियों की सहायता के लिए विविध शिक्षण विधियों का उपयोग करना

Q.185 Municipal corporation officials forcibly relocate slum dwellers to the outskirts of the city for urban renewal. The maximum instructional impact of this on their children is that they are deprived of _____.

नगर निगम के अधिकारी नगरीय नवीकरण के लिए झुग्गीवासियों को जबरन नगर के बहिर्भाग में पुनर्स्थापित कर देते हैं। इसका उनके बच्चों पर अधिकतम अनुदेशात्मक प्रभाव यह पड़ता है कि वे _____ से वंचित हो जाते हैं।

(1) informal employment opportunities / अनौपचारिक रोजगार के अवसर

(2) adequate housing facilities / पर्याप्त आवासन सुविधाओं

(3) **quality educational resources / गुणवत्तापूर्ण शैक्षिक संसाधन ✓**

(4) central business districts / केंद्रीय व्यवसाय ज़िले

Q.186 How does 'prejudiced mentality/premature evaluation' act as a barrier to listening?

'पूर्वाग्रहपूर्ण मानसिकता/समय-पूर्व मूल्यांकन' श्रवण में बाधा के रूप में कैसे कार्य करता है?

(1) Speaker uses simple language / वक्ता सरल भाषा का प्रयोग करता है

(2) **Listener judges message before hearing it fully / श्रोता संदेश को पूरा सुनने से पहले ही उसके बारे में निर्णय कर लेता है ✓**

(3) Listener improves understanding / श्रोता की समझ में सुधार होता है

(4) Speaker changes the topic suddenly / वक्ता अचानक विषय बदल देता है

Q.187 What is a key feature of recreational mathematics problems?

मनोरंजक गणित की समस्याओं की एक प्रमुख विशेषता क्या है?

(1) They always involve number theory / उनमें सदैव संख्या सिद्धांत शामिल होता है

(2) **They are easy to ask but difficult to answer / उन्हें पूछना आसान होता है परंतु उनका उत्तर देना कठिन होता है ✓**

(3) They require advanced mathematical training / उनके लिए उन्नत गणितीय प्रशिक्षण की आवश्यकता होती है

(4) They have immediately obvious solutions / उनके हल तुरंत स्पष्ट होते हैं

Q.188 A teacher wants to promote inclusive education by addressing gender bias in classroom discussions. Which strategy would be most effective?

एक शिक्षक कक्षा चर्चाओं में लैंगिक पूर्वाग्रह का समाधान करके समावेशी शिक्षा को बढ़ावा देना चाहता है। कौन-सी रणनीति सबसे प्रभावी होगी?

(1) Directing questions only to high-achieving students / केवल उच्च उपलब्धि वाले विद्यार्थियों से प्रश्न पूछना

(2) **Encouraging equal participation from all genders in debates / वाद-विवाद में सभी लिंगों की समान भागीदारी को प्रोत्साहित करना ✓**

(3) Allowing students to opt out of discussions / विद्यार्थियों को चर्चाओं से अलग रहने की अनुमति देना

(4) Focusing on topics unrelated to gender / लिंग से असंबंधित विषयों पर ध्यान केंद्रित करना

Q.189 How do science clubs and eco-club activities contribute to popularizing science in schools?

विज्ञान क्लब और इको-क्लब गतिविधियाँ विद्यालयों में विज्ञान को लोकप्रिय बनाने में कैसे योगदान देती हैं?

(1) They prioritize individual work over teamwork / वे टीम कार्य की तुलना में व्यक्तिगत कार्य को प्राथमिकता देती हैं

(2) They focus solely on exam preparation / वे केवल परीक्षा की तैयारी पर केंद्रित होती हैं

(3) They exclude environmental awareness / वे पर्यावरण जागरूकता को बाहर रखती हैं

(4) **They promote engagement through projects / वे परियोजनाओं के माध्यम से सहभागिता को बढ़ावा देती हैं ✓**

Q.190 Which aspect often reproduces gender roles in schools?

कौन-सा पक्ष प्रायः विद्यालयों में लैंगिक भूमिकाओं को पुनरुत्पादित करता है?

(1) School uniforms / विद्यालय की वर्दी

(2) **Classroom processes / कक्षा प्रक्रियाएँ ✓**

(3) Morning assemblies / प्रातःकालीन सभाएँ

(4) Playgrounds / खेल के मैदान

Q.191 How does language function as a source of exclusion in schooling?

विद्यालयी शिक्षा में भाषा अपवर्जन के स्रोत के रूप में कैसे कार्य करती है?

(1) When teachers encourage classroom dialogue in multiple languages / जब शिक्षक अनेक भाषाओं में कक्षा संवाद को प्रोत्साहित करते हैं

(2) **When instruction ignores students' home languages and linguistic backgrounds / जब अनुदेशन विद्यार्थियों की घरेलू भाषाओं और भाषायी पृष्ठभूमि की उपेक्षा करता है ✓**

(3) When textbooks include multilingual glossaries and examples / जब पाठ्यपुस्तकों में बहुभाषी शब्दावलियाँ और उदाहरण शामिल होते हैं

(4) When schools adopt flexible language support programmes / जब विद्यालय लचीले भाषा सहायता कार्यक्रम अपनाते हैं

Q.192 Which of the following is not a major activity in a science fair or exhibition?

निम्नलिखित में से कौन-सी विज्ञान मेले या प्रदर्शनी की प्रमुख गतिविधि नहीं है?

(1) Group discussions, seminars and workshops / समूह चर्चाएँ, संगोष्ठियाँ और कार्यशालाएँ

(2) **Musical performance shows organized in school / विद्यालय में आयोजित संगीत प्रस्तुति कार्यक्रम ✓**

(3) Debates, Declamation and paper reading contests / वाद-विवाद, भाषण और पत्र वाचन प्रतियोगिताएँ

(4) Science quiz competitions conducted for students / विद्यार्थियों के लिए आयोजित विज्ञान प्रश्नोत्तरी प्रतियोगिताएँ

Q.193 The constructivist approach in mathematics emphasizes:

गणित में रचनावादी उपागम किस पर बल देता है:

(1) Memorizing rules and procedures without understanding / बिना समझे नियमों और प्रक्रियाओं को कंठस्थ करना

(2) **Building understanding through inquiry / जाँच-पड़ताल के माध्यम से समझ का निर्माण ✓**

(3) Avoiding real-life applications / वास्तविक जीवन के अनुप्रयोगों से बचना

(4) Teachers providing all answers and procedures / शिक्षकों द्वारा सभी उत्तर और प्रक्रियाएँ प्रदान करना

Q.194 During the final week of a language unit, a teacher administers a cloze procedure and collects students' audio-taped presentations to evaluate their overall proficiency in LSRW skills. What is the main purpose of these activities?

किसी भाषा इकाई के अंतिम सप्ताह के दौरान, एक शिक्षक LSRW कौशलों में विद्यार्थियों की समग्र दक्षता का मूल्यांकन करने के लिए एक क्लोज़ प्रक्रिया संचालित करता है और विद्यार्थियों की ऑडियो-रिकॉर्ड की गई प्रस्तुतियाँ एकत्र करता है। इन गतिविधियों का मुख्य उद्देश्य क्या है?

(1) Providing ongoing feedback for improvement / सुधार के लिए निरंतर प्रतिपुष्टि प्रदान करना

(2) Encouraging collaborative learning / सहयोगात्मक अधिगम को प्रोत्साहित करना

(3) **Measuring achievement against objectives / उद्देश्यों के सापेक्ष उपलब्धि का मापन करना ✓**

(4) Identifying individual learning difficulties / व्यक्तिगत अधिगम कठिनाइयों की पहचान करना

Q.195 Which of the following best describes deductive reasoning in science education?

निम्नलिखित में से कौन-सा विज्ञान शिक्षा में निगमनात्मक तर्क का सबसे अच्छा वर्णन करता है?

(1) Observing results without drawing any conclusions / कोई निष्कर्ष निकाले बिना परिणामों का अवलोकन करना

(2) Starting with specific observations to form a general principle / एक सामान्य सिद्धांत बनाने के लिए विशिष्ट अवलोकनों से आरंभ करना

(3) Guessing the outcome based on past experience / पिछले अनुभव के आधार पर परिणाम का अनुमान लगाना

(4) **Starting with a general principle and applying it to specific cases / एक सामान्य सिद्धांत से आरंभ करके उसे विशिष्ट मामलों पर लागू करना ✓**

Q.196 Which of the following is incorrect according to Culturally Responsive Classroom Management?

सांस्कृतिक रूप से अनुक्रियाशील कक्षा प्रबंधन के अनुसार निम्नलिखित में से कौन-सा गलत है?

(1) It encourages respectful communication across differences / यह भिन्नताओं के बीच सम्मानजनक संप्रेषण को प्रोत्साहित करता है

(2) It values students' cultural identities in classroom practices / यह कक्षा प्रथाओं में विद्यार्थियों की सांस्कृतिक पहचान को महत्व देता है

(3) **It assumes one fixed behaviour model fits all learners / यह मानता है कि एक निश्चित व्यवहार मॉडल सभी शिक्षार्थियों के लिए उपयुक्त है ✓**

(4) It promotes inclusive routines for diverse backgrounds / यह विविध पृष्ठभूमियों के लिए समावेशी दिनचर्या को बढ़ावा देता है

Q.197 A teacher assigns students a project to create models of objects demonstrating symmetry, integrating art with mathematics. Which importance of mathematics in education does this highlight?

एक शिक्षक विद्यार्थियों को कला को गणित के साथ एकीकृत करते हुए सममिति प्रदर्शित करने वाली वस्तुओं के मॉडल बनाने की परियोजना देता है। यह शिक्षा में गणित के किस महत्व को रेखांकित करता है?

(1) **Interdisciplinary foundation / अंतर्विषयक आधार ✓**

(2) Strict procedural practice / कठोर प्रक्रियात्मक अभ्यास

(3) Singular focus on numbers / केवल संख्याओं पर एकल ध्यान

(4) Exclusive logical reasoning / अनन्य तार्किक तर्क

Q.198 Which of the following options best explains the role of patterns in learning mathematics?

निम्नलिखित में से कौन-सा विकल्प गणित सीखने में प्रतिरूपों (पैटर्न) की भूमिका की सबसे अच्छी व्याख्या करता है?

(1) **Pattern-based thinking helps children discover mathematical facts. / प्रतिरूप-आधारित चिंतन बच्चों को गणितीय तथ्यों की खोज करने में सहायता करता है। ✓**

(2) Pattern recognition is unrelated to mathematical problem-solving. / प्रतिरूप पहचान गणितीय समस्या-समाधान से असंबंधित है।

(3) Patterns are useful only at higher levels of mathematics. / प्रतिरूप केवल गणित के उच्च स्तरों पर उपयोगी हैं।

(4) Patterns help children memorize rules without understanding. / प्रतिरूप बच्चों को बिना समझे नियम कंठस्थ करने में सहायता करते हैं।

Q.199 A teacher designs an English lesson where students express their feelings about a poem and show appreciation for others' opinions. This learning outcome mainly belongs to which domain of Bloom's objectives?

एक शिक्षक अंग्रेज़ी का एक ऐसा पाठ तैयार करता है जिसमें विद्यार्थी एक कविता के बारे में अपनी भावनाएँ व्यक्त करते हैं और दूसरों की राय की सराहना करते हैं। यह अधिगम परिणाम मुख्य रूप से ब्लूम के उद्देश्यों के किस क्षेत्र से संबंधित है?

(1) Affective domain / भावात्मक क्षेत्र ✔

(2) Cognitive domain / संज्ञानात्मक क्षेत्र

(3) Linguistic domain / भाषायी क्षेत्र

(4) Psychomotor domain / मनोगत्यात्मक क्षेत्र

Q.200 Which of the following best describes Bloom's Taxonomy of Educational Objectives?

निम्नलिखित में से कौन-सा ब्लूम की शैक्षिक उद्देश्यों की वर्गीकरण (टैक्सोनॉमी) का सबसे अच्छा वर्णन करता है?

(1) A non-systematic list of instructional activities without hierarchy / पदानुक्रम रहित अनुदेशनात्मक गतिविधियों की एक अव्यवस्थित सूची

(2) A single-dimensional classification focusing only on knowledge and memory / केवल ज्ञान और स्मृति पर केंद्रित एक-आयामी वर्गीकरण

(3) A three-dimensional classification into Cognitive, Affective, and Psychomotor domains / संज्ञानात्मक, भावात्मक और मनोगत्यात्मक क्षेत्रों में त्रि-आयामी वर्गीकरण ✔

(4) A system that classifies learning objectives only on the basis of emotions and attitudes " / एक प्रणाली जो अधिगम उद्देश्यों को केवल संवेगों और अभिवृत्तियों के आधार पर वर्गीकृत करती है "

Answer Key / उत्तर कुंजी

1 1	**2** 4	**3** 4	**4** 1	**5** 1	**6** 1	**7** 1	**8** 3	**9** 1	**10** 1	**11** 1	**12** 2	**13** 1	**14** 2	**15** 2
16 2	**17** 1	**18** 4	**19** 4	**20** 3	**21** 3	**22** 2	**23** 2	**24** 4	**25** 3	**26** 3	**27** 1	**28** 4	**29** 3	**30** 4
31 2	**32** 1	**33** 1	**34** 4	**35** 4	**36** 1	**37** 1	**38** 4	**39** 2	**40** 2	**41** 1	**42** 2	**43** 3	**44** 1	**45** 1
46 1	**47** 1	**48** 1	**49** 4	**50** 3	**51** 3	**52** 1	**53** 2	**54** 2	**55** 3	**56** 4	**57** 2	**58** 1	**59** 1	**60** 1
61 1	**62** 1	**63** 3	**64** 4	**65** 4	**66** 3	**67** 3	**68** 4	**69** 4	**70** 2	**71** 3	**72** 1	**73** 4	**74** 3	**75** 3
76 3	**77** 2	**78** 1	**79** 3	**80** 3	**81** 3	**82** 2	**83** 3	**84** 4	**85** 4	**86** 3	**87** 4	**88** 3	**89** 2	**90** 2
91 1	**92** 1	**93** 4	**94** 1	**95** 1	**96** 1	**97** 4	**98** 2	**99** 3	**100** 1	**101** 2	**102** 2	**103** 2	**104** 4	**105** 2
106 4	**107** 1	**108** 4	**109** 3	**110** 4	**111** 2	**112** 2	**113** 3	**114** 3	**115** 4	**116** 1	**117** 2	**118** 2	**119** 1	**120** 1
121 4	**122** 4	**123** 1	**124** 1	**125** 1	**126** 1	**127** 1	**128** 1	**129** 1	**130** 4	**131** 4	**132** 3	**133** 2	**134** 2	**135** 2
136 4	**137** 1	**138** 2	**139** 2	**140** 4	**141** 4	**142** 2	**143** 1	**144** 3	**145** 3	**146** 3	**147** 4	**148** 3	**149** 3	**150** 3
151 4	**152** 4	**153** 2	**154** 1	**155** 3	**156** 1	**157** 1	**158** 2	**159** 3	**160** 1	**161** 3	**162** 3	**163** 3	**164** 1	**165** 3
166 1	**167** 3	**168** 2	**169** 1	**170** 1	**171** 1	**172** 4	**173** 4	**174** 4	**175** 4	**176** 2	**177** 1	**178** 2	**179** 4	**180** 4

181	182	183	184	185	186	187	188	189	190	191	192	193	194	195
2	3	2	1	3	2	2	2	4	2	2	2	2	3	4
196	**197**	**198**	**199**	**200**										
3	1	1	1	3										

QuickSarkari

GOVT. OF NCT OF DELHI
Delhi Subordinate Services Selection Board
FC-18, Institutional Area, Karkardooma, Delhi – 110092.
www.dsssb.delhigovt.nic.in

Participant ID	[redacted]
Participant Name	
Test Center Name	
Test Date	18/02/2026
Test Time	5:00 PM - 7:00 PM
Subject	Assistant Teacher Primary

Section : **General Intelligence and Reasoning Ability**

Q.1 **In a row of people all facing North, Zoha is 25th from the right end. Piya is 34th from the right end. Piya is exactly between Zoha and Minal. If Minal is 6th from the left end of the row, how many people are there in the row?**

Ans
✔ 1. 48
✘ 2. 46
✘ 3. 52
✘ 4. 50

Question ID : **4410091614394**
Option 1 ID : **4410096376394**
Option 2 ID : **4410096376393**
Option 3 ID : **4410096376396**
Option 4 ID : **4410096376395**

QuickSarkari.com | WhatsApp Channel | Telegram: t.me/quick_sarkari

Q.2 If the water source is placed along M-N, as shows in the figure, which of the given options will be the water reflection of the given figure?

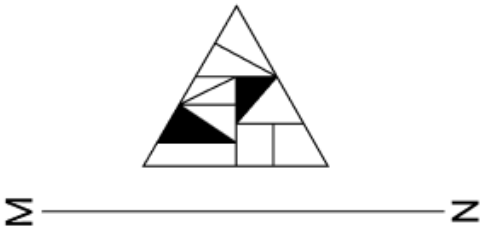

Ans

✗ 1.



✗ 2.



✗ 3.



✓ 4.



Question ID : **441009864924**
Option 1 ID : **4410093412799**
Option 2 ID : **4410093412796**
Option 3 ID : **4410093412797**
Option 4 ID : **4410093412798**

Q.3 A is the sister of B. B is the son of C. C is married to D. D is the daughter of E. E is the wife of F. G is the brother of D. How is F related to A?

Ans

✗ 1. Father

✗ 2. Wife's father

✗ 3. Father's brother

✓ 4. Mother's father

Question ID : **441009832714**
Option 1 ID : **4410093284063**
Option 2 ID : **4410093284060**
Option 3 ID : **4410093284062**
Option 4 ID : **4410093284061**

QuickSarkari.com | WhatsApp Channel | Telegram: t.me/quick_sarkari

Q.4 This question is based on the five, three-digit numbers given below.

(Left) 471 496 687 492 678 (Right)

(Example- 697 – First digit = 6, second digit = 9 and third digit = 7)
NOTE - All operations to be done from left to right.

What will be the resultant if the second digit of the highest number is added to the second digit of the lowest number?2170

Ans
✔ 1. 15
✘ 2. 17
✘ 3. 13
✘ 4. 14

Question ID : **441009788296**
Option 1 ID : **4410093107185**
Option 2 ID : **4410093107186**
Option 3 ID : **4410093107183**
Option 4 ID : **4410093107184**

Q.5 In a certain code language, 'WIRE' is coded as '5421' and 'PERI' is coded as '2745'.
What is the code for 'P' in the given code language?

Ans
✔ 1. 7
✘ 2. 4
✘ 3. 2
✘ 4. 5

Question ID : **4410091614527**
Option 1 ID : **4410096376921**
Option 2 ID : **4410096376923**
Option 3 ID : **4410096376922**
Option 4 ID : **4410096376924**

Q.6 Refer to the following letter series and answer the question. (Counting to be done from left to right only)
(Left) E B J E R A J N I D U R N L U H L T R (Right)
How many such consonants are there each of which is immediately preceded by a vowel and also immediately followed by a vowel?

Ans
✔ 1. 2
✘ 2. 4
✘ 3. 3
✘ 4. 1

Question ID : **441009779771**
Option 1 ID : **4410093073088**
Option 2 ID : **4410093073090**
Option 3 ID : **4410093073089**
Option 4 ID : **4410093073087**

QuickSarkari.com | WhatsApp Channel | Telegram: t.me/quick_sarkari

Q.7 If 'A' stands for '÷' , 'B' stands for '×', 'C' stands for '+' and 'D' stands for '-' , what will be come in place of question mark '?' in the following equation?
36 B 3 C 18 D 16 A 2=?3676

Ans
✔ 1. 118
✘ 2. 119
✘ 3. 121
✘ 4. 120

Question ID : **441009554141**
Option 1 ID : **4410092171878**
Option 2 ID : **4410092171879**
Option 3 ID : **4410092171881**
Option 4 ID : **4410092171880**

Q.8 Based on the English alphabetical order, three of the following four letter-cluster pairs are alike in a certain way and thus form a group. Which is the one that does not belong to that group?
(Note: The odd one out is not based on the number of consonants/vowels or their position in the letter cluster.)4096

Ans
✘ 1. TV - WY
✘ 2. KM - NP
✔ 3. CE - GI
✘ 4. HJ - KM

Question ID : **441009790210**
Option 1 ID : **4410093114839**
Option 2 ID : **4410093114841**
Option 3 ID : **4410093114840**
Option 4 ID : **4410093114842**

Q.9 Each vowel in the word AWAITING is changed to the letter immediately preceding it in the English alphabetical order and each consonant is changed to the letter immediately following it in the English alphabetical order. Which of the following letters will appear exactly twice in the new group of letters thus formed?

Ans
✔ 1. Z
✘ 2. U
✘ 3. X
✘ 4. H

Question ID : **441009216472**
Option 1 ID : **441009849927**
Option 2 ID : **441009849929**
Option 3 ID : **441009849930**
Option 4 ID : **441009849928**

QuickSarkari.com | WhatsApp Channel | Telegram: t.me/quick_sarkari

Q.10 In a row of 39 people facing the north. Lavanya sits 17th from the left end. If Rajat sits 5th to the right of Lavanya, what is Rajat's position from the right end of the line?

Ans
✔ 1. 18th
✘ 2. 22nd
✘ 3. 21st
✘ 4. 19th

Question ID : **441009216726**
Option 1 ID : **441009850945**
Option 2 ID : **441009850944**
Option 3 ID : **441009850946**
Option 4 ID : **441009850943**

Q.11 If the water source is placed along X-Y, as shown in the figure, which of the given options will be the water reflection of the given figure?

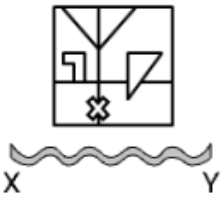

Ans
✔ 1. 
✘ 2. 
✘ 3. 
✘ 4. 

Question ID : **4410091614510**
Option 1 ID : **4410096376857**
Option 2 ID : **4410096376859**
Option 3 ID : **4410096376860**
Option 4 ID : **4410096376858**

QuickSarkari.com | WhatsApp Channel | Telegram: t.me/quick_sarkari

Q.12 16 is related to 63 following a certain logic. Following the same logic, 28 is related to 99. To which of the following is 12 related to, following the same logic? (NOTE : Operations should be performed on the whole numbers, without breaking down the numbers into its constituent digits. E.g. 13 – Operations on 13 such as adding / subtracting /multiplying etc. to 13 can be performed. Breaking down 13 into 1 and 3 and then performing mathematical operations on 1 and 3 is not allowed.)1508

Ans
✗ 1. 76
✓ 2. 51
✗ 3. 77
✗ 4. 73

Question ID : **441009551973**
Option 1 ID : **4410092163209**
Option 2 ID : **4410092163206**
Option 3 ID : **4410092163207**
Option 4 ID : **4410092163208**

Q.13 Refer to the following letter series and answer the question that follows. Counting to be done from left to right only.

(Left) R N R Y V I F E D H I T O J U E D S A B S I H R S A C (Right)

How many such vowels are there each of which is immediately preceded by a consonant and also immediately followed by a vowel? 1406

Ans
✓ 1. One
✗ 2. Two
✗ 3. None
✗ 4. Three

Question ID : **441009787532**
Option 1 ID : **4410093104128**
Option 2 ID : **4410093104129**
Option 3 ID : **4410093104127**
Option 4 ID : **4410093104130**

Q.14 In the following triads, each group of letters is related to the subsequent one following a certain logic. Select from the given options, the one which follows the same logic.
TRUE - RUTE - EURT
WASH - ASWH - HSAW13039

Ans
✗ 1. SWAN - SAWN - NAWS
✓ 2. LIFT - IFLT - TFIL
✗ 3. CURB - URCB - URBC
✗ 4. PAST - APST - TASP

Question ID : **441009767188**
Option 1 ID : **4410093022746**
Option 2 ID : **4410093022745**
Option 3 ID : **4410093022748**
Option 4 ID : **4410093022747**

QuickSarkari.com | WhatsApp Channel | Telegram: t.me/quick_sarkari

Q.15 Based on the English alphabetical order, three of the following four letter-cluster pairs are alike in a certain way and thus form a group. Which letter-cluster pair DOES NOT belong to that group?
(Note: The odd one out is not based on the number of consonants/vowels or their position in the letter-cluster.)

Ans
✗ 1. IB-EG
✓ 2. TM-PS
✗ 3. QJ-MO
✗ 4. NG-JL

Question ID : **441009346626**
Option 1 ID : **4410091352572**
Option 2 ID : **4410091352569**
Option 3 ID : **4410091352570**
Option 4 ID : **4410091352571**

Q.16 Seven people, D, A, N, U, B, E and S are sitting in a row, facing north. No one sits to the right of S. Only three people sit between S and B. Only two people sit between B and A. E sits third to the left of D. U sits to the immediate right of D. How many people sit between N and A?

Ans
✗ 1. Two
✓ 2. Three
✗ 3. Four
✗ 4. One

Question ID : **4410091618820**
Option 1 ID : **4410096394153**
Option 2 ID : **4410096394154**
Option 3 ID : **4410096394155**
Option 4 ID : **4410096394152**

Q.17 Each of the digits in the number 6543127 is arranged in ascending order from left to right. What will be the sum of the digits which are second from the left and second from the right in the new number thus formed?

Ans
✓ 1. 8
✗ 2. 3
✗ 3. 5
✗ 4. 7

Question ID : **4410091621626**
Option 1 ID : **4410096405309**
Option 2 ID : **4410096405307**
Option 3 ID : **4410096405308**
Option 4 ID : **4410096405310**

QuickSarkari

Q.18 What should come in place of ? in the given series based on the English alphabetical order?

BEW HKC NQI TWO ?

Ans
✗ 1. ZCD
✗ 2. ZUC
✗ 3. ZDC
✓ 4. ZCU

Question ID : **4410091519023**
Option 1 ID : **4410095999344**
Option 2 ID : **4410095999343**
Option 3 ID : **4410095999345**
Option 4 ID : **4410095999342**

Q.19 T, A, R, G, U and S live on six different floors of the same building. The lowermost floor in the building is numbered 1, the floor above it is numbered 2 and so on till the topmost floor is numbered 6. S lives on the floor numbered 4. Only two people live between S and G. Only T lives between S and U. A lives immediately below S. Who lives on floor number 2?

Ans
✗ 1. U
✗ 2. S
✗ 3. T
✓ 4. R

Question ID : **4410091614429**
Option 1 ID : **4410096376535**
Option 2 ID : **4410096376536**
Option 3 ID : **4410096376533**
Option 4 ID : **4410096376534**

Q.20 What should come in place of '?' in the given series?

149 161 178 200 227 ?

Ans
✗ 1. 261
✗ 2. 255
✓ 3. 259
✗ 4. 264

Question ID : **441009176384**
Option 1 ID : **441009697461**
Option 2 ID : **441009697459**
Option 3 ID : **441009697462**
Option 4 ID : **441009697460**

Section : **General Awareness**

QuickSarkari.com | WhatsApp Channel | Telegram: t.me/quick_sarkari

Q.1 Which of the following Mughal emperors abolished the Jizya tax for the first time?

Ans
✗ 1. Babur
✗ 2. Shah Jahan
✓ 3. Akbar
✗ 4. Jahangir

Question ID : **4410091270521**
Option 1 ID : **4410095014004**
Option 2 ID : **4410095014003**
Option 3 ID : **4410095014001**
Option 4 ID : **4410095014002**

Q.2 The National Sports Policy 2025 integrates sports initiatives with which broader policy framework?

Ans
✗ 1. National Technology Policy 2024
✓ 2. National Education Policy 2020
✗ 3. National Infrastructure Policy 2023
✗ 4. National Health Policy 2022

Question ID : **4410091546883**
Option 1 ID : **4410096110403**
Option 2 ID : **4410096110400**
Option 3 ID : **4410096110402**
Option 4 ID : **4410096110401**

Q.3 The Hurka Baul dance form is associated with the state of _____.

Ans
✗ 1. Uttar Pradesh
✓ 2. Uttarakhand
✗ 3. Punjab
✗ 4. West Bengal

Question ID : **441009186510**
Option 1 ID : **441009737107**
Option 2 ID : **441009737106**
Option 3 ID : **441009737109**
Option 4 ID : **441009737108**

Q.4 When was the Dutch Bengal established?

Ans
✗ 1. 1625 AD
✗ 2. 1628 AD
✗ 3. 1626 AD
✓ 4. 1627 AD

Question ID : **441009103048**
Option 1 ID : **441009410256**
Option 2 ID : **441009410259**
Option 3 ID : **441009410257**
Option 4 ID : **441009410258**

Q.5 Which major cycling event was set to pass through the Vatican for the first time in 2025?

Ans
✗ 1. Tour Down Under
✗ 2. Tour de France
✓ 3. Giro d'Italia
✗ 4. Vuelta a España

Question ID : **441009283027**
Option 1 ID : **4410091099265**
Option 2 ID : **4410091099263**
Option 3 ID : **4410091099262**
Option 4 ID : **4410091099264**

Q.6 During his deportation to Mandalay in 1908 for allegedly publishing a seditious article in 'Kesari', Bal Gangadhar Tilak authored which of the following significant works?

Ans
✗ 1. Gita-Sar
✗ 2. Gita-Darshan
✓ 3. Gita-Rahasya
✗ 4. Gita-Gyan

Question ID : **4410091551195**
Option 1 ID : **4410096127074**
Option 2 ID : **4410096127073**
Option 3 ID : **4410096127071**
Option 4 ID : **4410096127072**

Q.7 From which aircraft were the release trials of 'Gaurav' conducted by DRDO in April 2025?

Ans
✓ 1. Su-30 MKI
✗ 2. Mirage 2000
✗ 3. MiG-29
✗ 4. Tejas

Question ID : **441009240597**
Option 1 ID : **441009940494**
Option 2 ID : **441009940493**
Option 3 ID : **441009940492**
Option 4 ID : **441009940495**

QuickSarkari.com | WhatsApp Channel | Telegram: t.me/quick_sarkari

Q.8 **Which of the following is a qualification required for a person to be appointed as the Governor of an Indian state?**

Ans
✗ 1. Must belong to the state for which he is appointed and be at least 30 years old
✗ 2. Must be a member of the Parliament
✗ 3. Must have served as a judge in a High Court
✓ 4. Must be a citizen of India and at least 35 years old

Question ID : **441009672146**
Option 1 ID : **4410092642681**
Option 2 ID : **4410092642678**
Option 3 ID : **4410092642679**
Option 4 ID : **4410092642680**

Q.9 **In which of the following years was the 'Prime Minister's Employment Generation Programme (PMEGP)' launched by the Government of India?**

Ans
✗ 1. 2002
✗ 2. 2012
✓ 3. 2008
✗ 4. 2005

Question ID : **441009637571**
Option 1 ID : **4410092504427**
Option 2 ID : **4410092504430**
Option 3 ID : **4410092504429**
Option 4 ID : **4410092504428**

Q.10 **What can the central bank do to increase money supply in the economy?**

Ans
✗ 1. Increasing Cash reserve ratio
✗ 2. Decresing the amount of funds
✗ 3. Increasing bank rate
✓ 4. Decreasing bank rate

Question ID : **441009628148**
Option 1 ID : **4410092466747**
Option 2 ID : **4410092466744**
Option 3 ID : **4410092466745**
Option 4 ID : **4410092466746**

Q.11 **Which global pressure belt lies around 30° North and South latitudes and is associated with dry climates?**

Ans
✗ 1. Polar high
✓ 2. Sub-tropical high
✗ 3. Equatorial low
✗ 4. Sub-polar low

Question ID : **441009320105**
Option 1 ID : **4410091246691**
Option 2 ID : **4410091246692**
Option 3 ID : **4410091246689**
Option 4 ID : **4410091246690**

Q.12 In the process of photosynthesis, which of the following chemical reactions occurs during photolysis?

Ans

✔ 1. $2H_2O \rightarrow 4H^+ + 4e^- + O_2$

✘ 2. $NADP + e^- \rightarrow$ reduced NADP

✘ 3. $RUBP + O_2 \xrightarrow{RuBisCO} 3\text{-}PGA + Phosphoglycolate$, $\rightarrow CO_2$

✘ 4. $ADP + Pi \rightarrow ATP$

Question ID : **441009625489**
Option 1 ID : **4410092456090**
Option 2 ID : **4410092456089**
Option 3 ID : **4410092456091**
Option 4 ID : **4410092456088**

Q.13 Which of the following statements CORRECTLY links constitutional provisions regarding ministers with the appropriate schedules?

Ans

✔ 1. A disqualified MP under the Tenth Schedule cannot be appointed as a minister under Article 75(1B) for a specified period.

✘ 2. The collective responsibility of the Council of Ministers is enforced through provisions in the Fourth Schedule

✘ 3. Ministers hold office during the pleasure of the President, as outlined in the Ninth Schedule.

✘ 4. The form of oath for ministers is prescribed in the Second Schedule of the Constitution.

Question ID : **441009671875**
Option 1 ID : **4410092641594**
Option 2 ID : **4410092641597**
Option 3 ID : **4410092641596**
Option 4 ID : **4410092641595**

Q.14 Which of the following articles of the Indian Constitution is associated with the appointment of the Prime Minister of India?

Ans

✘ 1. Article 80

✘ 2. Article 60

✘ 3. Article 62

✔ 4. Article 75

Question ID : **441009343160**
Option 1 ID : **4410091338626**
Option 2 ID : **4410091338623**
Option 3 ID : **4410091338624**
Option 4 ID : **4410091338625**

QuickSarkari.com | WhatsApp Channel | Telegram: t.me/quick_sarkari

Q.15 Which of the following is a major tradition of Indian classical music that originated in North India?

Ans
✗ 1. Carnatic
✗ 2. Modern
✗ 3. Folk
✓ 4. Hindustani

Question ID : **441009753587**
Option 1 ID : **4410092968329**
Option 2 ID : **4410092968332**
Option 3 ID : **4410092968331**
Option 4 ID : **4410092968330**

Q.16 Which of the following does NOT focus on rural development?

Ans
✓ 1. Enhancement of income levels in industrial sectors
✗ 2. Development of litercay and skill development
✗ 3. Development of the productive resources of each locality
✗ 4. Infrastructure development and special measures for poverty

Question ID : **441009510730**
Option 1 ID : **4410091998081**
Option 2 ID : **4410091998078**
Option 3 ID : **4410091998079**
Option 4 ID : **4410091998080**

Q.17 What is the main acid component in vinegar?

Ans
✓ 1. Acetic acid
✗ 2. Nitric acid
✗ 3. Tannic acid
✗ 4. Citric acid

Question ID : **441009513011**
Option 1 ID : **4410092007082**
Option 2 ID : **4410092007083**
Option 3 ID : **4410092007080**
Option 4 ID : **4410092007081**

Q.18 Which state had the lowest literacy rate among the major states as per Census 2011?

Ans
✗ 1. Uttar Pradesh
✗ 2. Rajasthan
✗ 3. Madhya Pradesh
✓ 4. Bihar

Question ID : **441009637586**
Option 1 ID : **4410092504489**
Option 2 ID : **4410092504488**
Option 3 ID : **4410092504490**
Option 4 ID : **4410092504487**

Quick Sarkari

Q.19 Aditya-L1 was the first Indian spacecraft to enter a halo orbit around the Sun-Earth L1 point in which year?

Ans
✗ 1. 2023
✓ 2. 2024
✗ 3. 2021
✗ 4. 2022

Question ID : **441009379055**
Option 1 ID : **4410091482047**
Option 2 ID : **4410091482048**
Option 3 ID : **4410091482045**
Option 4 ID : **4410091482046**

Q.20 In which city were the World Boxing Championships, 2025, held?

Ans
✗ 1. Manchester
✓ 2. Liverpool
✗ 3. Birmingham
✗ 4. London

Question ID : **4410091330899**
Option 1 ID : **4410095255195**
Option 2 ID : **4410095255197**
Option 3 ID : **4410095255196**
Option 4 ID : **4410095255194**

Section : **Arithmetical and Numerical Ability**

Q.1 A conical water tower with a radius of 9 metres and a height of 12 metres is made of reinforced concrete. What is the cost of the concrete used to make this water tower including its base if the price of concrete is ₹350 per m^2? (Given: π = 3.14)

Ans
✓ 1. ₹2,37,384
✗ 2. ₹2,63,761
✗ 3. ₹2,54,528
✗ 4. ₹2,45,824

Question ID : **44100952285**
Option 1 ID : **441009208255**
Option 2 ID : **441009208258**
Option 3 ID : **441009208257**
Option 4 ID : **441009208256**

Q.2 A sailor goes 12 km downstream in 1 hour and returns in 1 hour 12 minutes. Determine the speed of the sailor in still water.

Ans
✗ 1. 9.5 km/hr
✓ 2. 11 km/hr
✗ 3. 10 km/hr
✗ 4. 10.5 km/hr

Question ID : **441009125499**
Option 1 ID : **441009498839**
Option 2 ID : **441009498842**
Option 3 ID : **441009498840**
Option 4 ID : **441009498841**

Q.3 Two numbers are in the ratio of 3 : 5, their LCM is 90. Find t

Ans
✗ 1. 12, 20
✗ 2. 15, 25
✓ 3. 18, 30
✗ 4. 21, 35

Question ID : **44100910888**
Option 1 ID : **44100943369**
Option 2 ID : **44100943368**
Option 3 ID : **44100943367**
Option 4 ID : **44100943366**

Q.4 The average of three numbers is 21. If two numbers are 16 and 23, the third number is:

Ans
✓ 1. 24
✗ 2. 23
✗ 3. 26
✗ 4. 25

Question ID : **441009581272**
Option 1 ID : **4410092280214**
Option 2 ID : **4410092280215**
Option 3 ID : **4410092280217**
Option 4 ID : **4410092280216**

Q.5 What sum (in ₹) will earn a simple interest of ₹1680 in 2 years at 8% per year rate of interest?1348

Ans
✓ 1. 10500
✗ 2. 5250
✗ 3. 21000
✗ 4. 268.8

Question ID : **441009852630**
Option 1 ID : **4410093363492**
Option 2 ID : **4410093363493**
Option 3 ID : **4410093363494**
Option 4 ID : **4410093363495**

Quick Sarkari

Q.6 Simplify: $\frac{\sqrt[3]{5832}}{\sqrt[4]{1296}} \times \frac{3}{54} \times 198$

Ans
- ✔ 1. 33
- ✘ 2. 30
- ✘ 3. 27
- ✘ 4. 23

Question ID : **441009575767**
Option 1 ID : **4410092258188**
Option 2 ID : **4410092258190**
Option 3 ID : **4410092258191**
Option 4 ID : **4410092258189**

Q.7 **Anwar's salary is ₹12,000 per month. He spends ₹5,000 on house rent, ₹3,000 on bills and the rest of the amount is his monthly savings. Find his savings (in ₹) in a year, if in the month of his birthday he spent his complete monthly saving for birthday celebrations.**

Ans
- ✔ 1. 44,000
- ✘ 2. 48,000
- ✘ 3. 40,000
- ✘ 4. 36,000

Question ID : **441009209381**
Option 1 ID : **441009822807**
Option 2 ID : **441009822808**
Option 3 ID : **441009822809**
Option 4 ID : **441009822810**

Q.8 **From a solid wooden cylinder of radius 31.5 cm and height 25 cm, a cone of the same height and same diameter is made. What is the total surface area (in cm², rounded off to nearest tens) of the remaining part of the cylinder?**

Ans
- ✔ 1. 12,050
- ✘ 2. 12,570
- ✘ 3. 17,630
- ✘ 4. 15,800

Question ID : **441009125603**
Option 1 ID : **441009499258**
Option 2 ID : **441009499255**
Option 3 ID : **441009499257**
Option 4 ID : **441009499256**

QuickSarkari

Q.9 Two taps can fill a cistern in 2 hours and 31 hours. A third tap can empty it in 31 hours. How long (in hours) will it take to fill the empty cistern, if all of them are opened together?

Ans
1. 5
2. 4
3. 3
4. 2

Question ID : **441009194614**
Option 1 ID : **441009766406**
Option 2 ID : **441009766405**
Option 3 ID : **441009766404**
Option 4 ID : **441009766403**

Q.10 Ravi purchased 25 dozens of goods at the rate of ₹ 3,750 per dozen. He sold each one of them at the rate of ₹330. What was his percentage profit?

Ans
1. 6.5%
2. 7.5%
3. 5.6%
4. 8.6%

Question ID : **441009125511**
Option 1 ID : **441009498888**
Option 2 ID : **441009498889**
Option 3 ID : **441009498890**
Option 4 ID : **441009498887**

Q.11 The distance between A and B is 752 km. From A, Vishal goes to B with a speed of 96 km/hr and return to A with a speed of 94 km/hr.
Find the average speed of Vishal. (Rounded off to two decimal places)

Ans
1. 95.38 km/hr
2. 98.65 km/hr
3. 94.99 km/hr
4. 97.25 km/hr

Question ID : **441009209090**
Option 1 ID : **441009821644**
Option 2 ID : **441009821646**
Option 3 ID : **441009821643**
Option 4 ID : **441009821645**

QuickSarkari.com | WhatsApp Channel | Telegram: t.me/quick_sarkari

Q.12 If 48 is the mean proportion between x and 192, what is the value of x?

Ans
✔ 1. 12
✘ 2. 24
✘ 3. 16
✘ 4. 30

Question ID : **441009125532**
Option 1 ID : **441009498972**
Option 2 ID : **441009498974**
Option 3 ID : **441009498971**
Option 4 ID : **441009498973**

Q.13 Shivam has two grandsons, Rupesh and Mandar. 12-year-old Rupesh gets some money from Shivam's wealth, and 13-year-old Mandar gets the rest of the money. But Rupesh and Mandar will get the money only when they turn 25 years old. Till then, the money will be kept in a bank earning interest at the rate of 8% per annum, compounded annually. When both turn 25, they receive the same amount. If the total amount Shivam had was ₹23,400, how much money (in ₹) did Shivam initially give to Mandar?

Ans
✘ 1. 11,000
✔ 2. 12,150
✘ 3. 11,250
✘ 4. 12,500

Question ID : **441009543439**
Option 1 ID : **4410092129155**
Option 2 ID : **4410092129152**
Option 3 ID : **4410092129153**
Option 4 ID : **4410092129154**

Q.14 The length and breadth of a rectangular field are in the ratio 8 : 7. If the perimeter of the field is 90 m, find the length (in m) of the field.

Ans
✘ 1. 21
✔ 2. 24
✘ 3. 27
✘ 4. 18

Question ID : **4410099017**
Option 1 ID : **44100935833**
Option 2 ID : **44100935834**
Option 3 ID : **44100935835**
Option 4 ID : **44100935832**

QuickSarkari.com | WhatsApp Channel | Telegram: t.me/quick_sarkari

Q.15 **The given bar-graph shows the favourite sports of 540 students of a school.**

Study the graph and answer the question that follows.

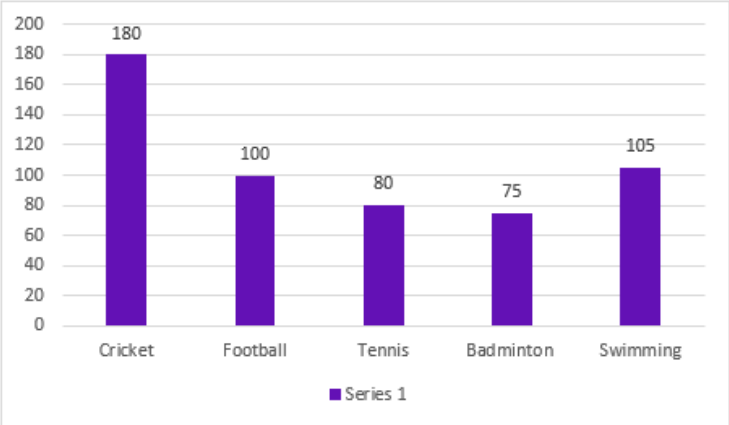

Find the ratio between the number of students who like Cricket to the number of students who like Badminton.

Ans
- ✗ 1. 10 : 3
- ✗ 2. 7 : 3
- ✓ 3. 12 : 5
- ✗ 4. 8 : 5

Question ID : **4410095716**
Option 1 ID : **44100922644**
Option 2 ID : **44100922642**
Option 3 ID : **44100922645**
Option 4 ID : **44100922643**

Q.16 **A tap fills a cistern in 16 hours. Another tap empties the full tank in 80 hours. How long (in hours) will it take to fill one-fourth of the tank, if the tank is empty initially and both the taps are open together?**3935

Ans
- ✗ 1. 20
- ✗ 2. 10
- ✗ 3. 15
- ✓ 4. 5

Question ID : **441009897248**
Option 1 ID : **4410093543065**
Option 2 ID : **4410093543063**
Option 3 ID : **4410093543064**
Option 4 ID : **4410093543062**

QuickSarkari.com | WhatsApp Channel | Telegram: t.me/quick_sarkari

Q.17 The average of 8 numbers is 45. If each number is increased by 3, what will be the new average?

Ans
✗ 1. 45
✓ 2. 48
✗ 3. 8
✗ 4. 51

Question ID : **441009581568**
Option 1 ID : **4410092281399**
Option 2 ID : **4410092281398**
Option 3 ID : **4410092281401**
Option 4 ID : **4410092281400**

Q.18 A shopkeeper bought 50 notebooks for ₹1,000. He sold all the notebooks for ₹1,250. What is his percentage profit?

Ans
✓ 1. 25%
✗ 2. 22.5%
✗ 3. 20%
✗ 4. 30%

Question ID : **4410091546361**
Option 1 ID : **4410096108317**
Option 2 ID : **4410096108316**
Option 3 ID : **4410096108315**
Option 4 ID : **4410096108318**

Q.19 Three friends X, Y and Z started a business by investing a sum of money in the ratio of 5 : 2 : 8. After 6 months X withdraws half of his capital. If the sum invested by Z is ₹19000, out of a total annual profit of ₹55000, What is the difference between the X's and Y's profit?6281

Ans
✓ 1. ₹7000
✗ 2. ₹8405
✗ 3. ₹6195
✗ 4. ₹7355

Question ID : **441009899594**
Option 1 ID : **4410093552446**
Option 2 ID : **4410093552447**
Option 3 ID : **4410093552449**
Option 4 ID : **4410093552448**

QuickSarkari.com | WhatsApp Channel | Telegram: t.me/quick_sarkari

Q.20 Saed allows two successive discounts of 10% and 20% on the marked price of a ruler, which is equivalent to a single discount of ₹140. How much profit percentage will Saed make on that ruler if the cost price is ₹288?

Ans
✔ 1. 25%
✘ 2. 26%
✘ 3. 28%
✘ 4. 23%

Question ID : **441009894328**
Option 1 ID : **4410093531382**
Option 2 ID : **4410093531384**
Option 3 ID : **4410093531385**
Option 4 ID : **4410093531383**

Section : **English Language and Comprehension**

Q.1 Identify the word which is not spelt correctly.
The committee concluded that the report contained inconsistant data that needed verification.

Ans
✔ 1. inconsistant
✘ 2. concluded
✘ 3. verification
✘ 4. committee

Question ID : **4410091555158**
Option 1 ID : **4410096143263**
Option 2 ID : **4410096143264**
Option 3 ID : **4410096143265**
Option 4 ID : **4410096143266**

Q.2 Select the appropriate conjunction to fill in the blank.

____ it was raining heavily, the match continued.

Ans
✔ 1. Although
✘ 2. Unless
✘ 3. Since
✘ 4. While

Question ID : **4410091027545**
Option 1 ID : **4410094061713**
Option 2 ID : **4410094061714**
Option 3 ID : **4410094061711**
Option 4 ID : **4410094061712**

QuickSarkari.com | WhatsApp Channel | Telegram: t.me/quick_sarkari

Q.3 **Select the option that is the most appropriate antonym of the highlighted word in the given sentence.**
The instructions were explicit and easy to follow.

Ans
✗ 1. delicate
✗ 2. important
✓ 3. implicit
✗ 4. detailed

Question ID : **4410091603215**
Option 1 ID : **4410096332058**
Option 2 ID : **4410096332059**
Option 3 ID : **4410096332056**
Option 4 ID : **4410096332057**

Q.4 **Choose the appropriate verb form to complete the sentence.**

If the manager _____ the issue earlier, we might have avoided the delay.

Ans
✗ 1. address
✗ 2. addressed
✗ 3. addresses
✓ 4. had addressed

Question ID : **4410091123464**
Option 1 ID : **4410094429413**
Option 2 ID : **4410094429414**
Option 3 ID : **4410094429416**
Option 4 ID : **4410094429415**

Q.5 **Select the most appropriate option that can substitute the underlined words in the given sentence.**
Within the four coming in between months occurred one of the unhappiest experiences of my life.

Ans
✗ 1. suggesting
✗ 2. abating
✗ 3. skidding
✓ 4. intervening

Question ID : **4410091543773**
Option 1 ID : **4410096098176**
Option 2 ID : **4410096098174**
Option 3 ID : **4410096098177**
Option 4 ID : **4410096098175**

QuickSarkari.com | WhatsApp Channel | Telegram: t.me/quick_sarkari

Q.6 Select the most appropriate option to fill in the blank.

___ patriot in her did not let her yield.

Ans
✗ 1. That
✗ 2. A
✓ 3. The
✗ 4. An

Question ID : **4410091482918**
Option 1 ID : **4410091887024**
Option 2 ID : **4410091887022**
Option 3 ID : **4410091887021**
Option 4 ID : **4410091887023**

Q.7 Select the most appropriate option that can substitute the underlined words in the given sentence.
The answer lies at present locked in old diaries, half wiped out in the memories of the aged.

Ans
✗ 1. discriminated
✗ 2. abided
✓ 3. obliterated
✗ 4. breached

Question ID : **4410091543754**
Option 1 ID : **4410096098091**
Option 2 ID : **4410096098093**
Option 3 ID : **4410096098090**
Option 4 ID : **4410096098092**

Q.8 Parts of a sentence are given below. While the first and the last part (S1) and (S6) are in correct order, the parts in between are jumbled up. Arrange the parts in the correct order to form a meaningful sentence.

S1. Once we have assessed
P. the diverse patterns and
Q. shades at your disposal
R. specific preferences for you
S. we will communicate our
S6. to prepare samples accordingly.

Ans
✗ 1. QRPS
✗ 2. RPSQ
✗ 3. SQRP
✓ 4. PQSR

Question ID : **4410091534546**
Option 1 ID : **4410096061431**
Option 2 ID : **4410096061432**
Option 3 ID : **4410096061434**
Option 4 ID : **4410096061433**

Q.9 **Identify the antonym of the underlined word in the sentence given below.**

The arid climate of the region makes agriculture difficult.

Ans
- ✗ 1. shiny
- ✗ 2. rough
- ✗ 3. windy
- ✓ 4. humid

Question ID : **4410091639661**
Option 1 ID : **4410096476040**
Option 2 ID : **4410096476041**
Option 3 ID : **4410096476042**
Option 4 ID : **4410096476039**

Q.10 **Choose the most appropriate option to fill in the given blank.**

If she ___ harder, she would have passed the exam.

Ans
- ✗ 1. is studying
- ✓ 2. had studied
- ✗ 3. study
- ✗ 4. studies

Question ID : **4410091127421**
Option 1 ID : **4410094445237**
Option 2 ID : **4410094445238**
Option 3 ID : **4410094445239**
Option 4 ID : **4410094445236**

Q.11 **Select the most appropriate option to substitute the underlined word segment in the given sentence.**

He took a risk.

Ans
- ✗ 1. won laurels
- ✗ 2. took to his heels
- ✓ 3. took a leap in the dark
- ✗ 4. took great pains

Question ID : **4410091529446**
Option 1 ID : **4410096040886**
Option 2 ID : **4410096040883**
Option 3 ID : **4410096040885**
Option 4 ID : **4410096040884**

QuickSarkari.com | WhatsApp Channel | Telegram: t.me/quick_sarkari

Q.12 **Complete the following sentence using the most appropriate option.**

The District Manager created ..... one-year plan to improve sanitation of the city.

Ans
- ✔ 1. a
- ✘ 2. an
- ✘ 3. no article
- ✘ 4. the

Question ID : **4410091048559**
Option 1 ID : **4410094143352**
Option 2 ID : **4410094143353**
Option 3 ID : **4410094143355**
Option 4 ID : **4410094143354**

Q.13 **Four words have been underlined in the given sentence. One of them is misspelt. From the given options, select the misspelt word.**
From this it is a short step to the practice of the sophisticated arts hithreto so little practised by women - to the writing of essays and criticism, of history and biography.

Ans
- ✘ 1. sophisticated
- ✘ 2. biography
- ✘ 3. criticism
- ✔ 4. hithreto

Question ID : **4410091544917**
Option 1 ID : **4410096102723**
Option 2 ID : **4410096102726**
Option 3 ID : **4410096102725**
Option 4 ID : **4410096102724**

Q.14 **In the following question a statement has been given with highlighted text. You are required to replace the text with the correct idiom from the given alternatives.**

The company's market share has been growing speedily in the last few years, mainly because of its strong customer base and innovative products.

Ans
- ✘ 1. By fits and starts
- ✘ 2. At the eleventh hour
- ✔ 3. By leaps and bounds
- ✘ 4. By hook or crook

Question ID : **4410091264426**
Option 1 ID : **4410094990594**
Option 2 ID : **4410094990597**
Option 3 ID : **4410094990596**
Option 4 ID : **4410094990595**

QuickSarkari.com | WhatsApp Channel | Telegram: t.me/quick_sarkari

Q.15 **Parts of a sentence are given below. While the first part is in the correct place, the remaining parts (labelled P, Q, R and S) are jumbled up. Arrange the parts in the correct order to form a meaningful and coherent sentence.**

She quickly walked to the station,/trying to catch the train (P)/before it departed (Q)/checking the time (R)/on her phone (S)

Ans
- ✗ 1. QPRS
- ✗ 2. PRSQ
- ✓ 3. RSPQ
- ✗ 4. RQSP

Question ID : **44100929807**
Option 1 ID : **441009118687**
Option 2 ID : **441009118686**
Option 3 ID : **441009118688**
Option 4 ID : **441009118685**

Comprehension:

Read the given passage and answer the questions that follow.

During much of medieval Europe, monasteries played a crucial role in preserving knowledge at a time when formal education was limited and literacy was rare. Following the decline of the Roman Empire, many centres of learning collapsed, but monastic communities continued to value reading, writing and study as part of their religious life. Monks devoted long hours to copying manuscripts by hand, ensuring the survival of classical texts in philosophy, medicine, history and theology. Monasteries functioned not only as religious institutions but also as intellectual centres. Their libraries became repositories of accumulated knowledge, carefully maintained across generations. In addition to copying ancient works, monks produced commentaries, chronicles and scientific observations, blending classical learning with Christian thought. These activities helped shape medieval scholarship and laid foundations for later intellectual movements. Monastic schools also trained clerics and administrators, indirectly supporting governance and record keeping. Although access to this knowledge remained restricted, the careful preservation of texts meant that Europe did not entirely lose contact with its intellectual past. When universities began to emerge in the later Middle Ages, they drew heavily on materials that monasteries had safeguarded for centuries, making monastic preservation a vital link between antiquity and the Renaissance.

SubQuestion No : 16

Q.16 **Which activity occupied a large part of monks' daily work?**

Ans
- ✗ 1. Conducting public debates
- ✗ 2. Creating fictional literature
- ✓ 3. Copying manuscripts by hand
- ✗ 4. Translating foreign languages

Question ID : **4410091587194**
Option 1 ID : **4410096269670**
Option 2 ID : **4410096269669**
Option 3 ID : **4410096269671**
Option 4 ID : **4410096269668**

Comprehension:

Read the given passage and answer the questions that follow.

During much of medieval Europe, monasteries played a crucial role in preserving knowledge at a time when formal education was limited and literacy was rare. Following the decline of the Roman Empire, many centres of learning collapsed, but monastic communities continued to value reading, writing and study as part of their religious life. Monks devoted long hours to copying manuscripts by hand, ensuring the survival of classical texts in philosophy, medicine, history and theology. Monasteries functioned not only as religious institutions but also as intellectual centres. Their libraries became repositories of accumulated knowledge, carefully maintained across generations. In addition to copying ancient works, monks produced commentaries, chronicles and scientific observations, blending classical learning with Christian thought. These activities helped shape medieval scholarship and laid foundations for later intellectual movements. Monastic schools also trained clerics and administrators, indirectly supporting governance and record keeping. Although access to this knowledge remained restricted, the careful preservation of texts meant that Europe did not entirely lose contact with its intellectual past. When universities began to emerge in the later Middle Ages, they drew heavily on materials that monasteries had safeguarded for centuries, making monastic preservation a vital link between antiquity and the Renaissance.

SubQuestion No : 17

Q.17 How did monks treat classical learning?

Ans

✗ 1. They replaced it with theology

✓ 2. They combined it with Christian thought

✗ 3. They removed its philosophical elements

✗ 4. They preserved it without change

Question ID : **4410091587195**
Option 1 ID : **4410096269675**
Option 2 ID : **4410096269673**
Option 3 ID : **4410096269674**
Option 4 ID : **4410096269672**

QuickSarkari

Comprehension:

Read the given passage and answer the questions that follow.

During much of medieval Europe, monasteries played a crucial role in preserving knowledge at a time when formal education was limited and literacy was rare. Following the decline of the Roman Empire, many centres of learning collapsed, but monastic communities continued to value reading, writing and study as part of their religious life. Monks devoted long hours to copying manuscripts by hand, ensuring the survival of classical texts in philosophy, medicine, history and theology. Monasteries functioned not only as religious institutions but also as intellectual centres. Their libraries became repositories of accumulated knowledge, carefully maintained across generations. In addition to copying ancient works, monks produced commentaries, chronicles and scientific observations, blending classical learning with Christian thought. These activities helped shape medieval scholarship and laid foundations for later intellectual movements. Monastic schools also trained clerics and administrators, indirectly supporting governance and record keeping. Although access to this knowledge remained restricted, the careful preservation of texts meant that Europe did not entirely lose contact with its intellectual past. When universities began to emerge in the later Middle Ages, they drew heavily on materials that monasteries had safeguarded for centuries, making monastic preservation a vital link between antiquity and the Renaissance.

SubQuestion No : 18

Q.18 Select the most appropriate title for the passage.

Ans

✔ 1. Monasteries as Keepers of Knowledge

✘ 2. The End of Classical Thought

✘ 3. Religion and Medieval Power

✘ 4. Decline of Learning in Europe in the Medieval Age

Question ID : **4410091587196**
Option 1 ID : **4410096269676**
Option 2 ID : **4410096269677**
Option 3 ID : **4410096269678**
Option 4 ID : **4410096269679**

QuickSarkari

Comprehension:

Read the given passage and answer the questions that follow.

During much of medieval Europe, monasteries played a crucial role in preserving knowledge at a time when formal education was limited and literacy was rare. Following the decline of the Roman Empire, many centres of learning collapsed, but monastic communities continued to value reading, writing and study as part of their religious life. Monks devoted long hours to copying manuscripts by hand, ensuring the survival of classical texts in philosophy, medicine, history and theology. Monasteries functioned not only as religious institutions but also as intellectual centres. Their libraries became repositories of accumulated knowledge, carefully maintained across generations. In addition to copying ancient works, monks produced commentaries, chronicles and scientific observations, blending classical learning with Christian thought. These activities helped shape medieval scholarship and laid foundations for later intellectual movements. Monastic schools also trained clerics and administrators, indirectly supporting governance and record keeping. Although access to this knowledge remained restricted, the careful preservation of texts meant that Europe did not entirely lose contact with its intellectual past. When universities began to emerge in the later Middle Ages, they drew heavily on materials that monasteries had safeguarded for centuries, making monastic preservation a vital link between antiquity and the Renaissance.

SubQuestion No : 19

Q.19 Choose the antonym of "restricted"

Ans

✗ 1. cautious

✗ 2. limited

✓ 3. open

✗ 4. selective

Question ID : **4410091587197**
Option 1 ID : **4410096269683**
Option 2 ID : **4410096269680**
Option 3 ID : **4410096269682**
Option 4 ID : **4410096269681**

QuickSarkari

Comprehension:

Read the given passage and answer the questions that follow.

During much of medieval Europe, monasteries played a crucial role in preserving knowledge at a time when formal education was limited and literacy was rare. Following the decline of the Roman Empire, many centres of learning collapsed, but monastic communities continued to value reading, writing and study as part of their religious life. Monks devoted long hours to copying manuscripts by hand, ensuring the survival of classical texts in philosophy, medicine, history and theology. Monasteries functioned not only as religious institutions but also as intellectual centres. Their libraries became repositories of accumulated knowledge, carefully maintained across generations. In addition to copying ancient works, monks produced commentaries, chronicles and scientific observations, blending classical learning with Christian thought. These activities helped shape medieval scholarship and laid foundations for later intellectual movements. Monastic schools also trained clerics and administrators, indirectly supporting governance and record keeping. Although access to this knowledge remained restricted, the careful preservation of texts meant that Europe did not entirely lose contact with its intellectual past. When universities began to emerge in the later Middle Ages, they drew heavily on materials that monasteries had safeguarded for centuries, making monastic preservation a vital link between antiquity and the Renaissance.

SubQuestion No : 20

Q.20 What inference can be drawn about literacy in medieval Europe?

Ans

✗ 1. It was actively discouraged

✗ 2. It was found in urban regions only

✓ 3. It was limited to select groups

✗ 4. It was equally distributed across regions

Question ID : **4410091587198**
Option 1 ID : **4410096269686**
Option 2 ID : **4410096269687**
Option 3 ID : **4410096269684**
Option 4 ID : **4410096269685**

Section : **Hindi Language and Comprehension**

Q.1 "आगे कुआँ पीछे खाई"- लोकोक्ति का क्या अर्थ है?

Ans

✗ 1. खाद्य सामग्री का अभाव होना

✗ 2. इधर-उधर की बातें करना

✓ 3. सभी ओर से विपत्ति का आना

✗ 4. दुविधा में पड़ना

Question ID : **4410091618363**
Option 1 ID : **4410096392325**
Option 2 ID : **4410096392324**
Option 3 ID : **4410096392326**
Option 4 ID : **4410096392323**

QuickSarkari.com | WhatsApp Channel | Telegram: t.me/quick_sarkari

Q.2 नीचे दिए गए वाक्य के किस भाग में वर्तनी संबंधी अशुद्धि है?
अधिकांस लोगों का यही विचार है ।

Ans
✗ 1. यही
✓ 2. अधिकांस
✗ 3. लोगों का
✗ 4. विचार है ।

Question ID : **4410091624836**
Option 1 ID : **4410096417873**
Option 2 ID : **4410096417871**
Option 3 ID : **4410096417872**
Option 4 ID : **4410096417874**

Q.3 प्रेमचंद की कहानियों में ग्रामीण व्यक्तिव जीवंत हो उठता है।
वर्तनी की दृष्टि से दिए गए वाक्य के किस अंश में त्रुटि है?

Ans
✗ 1. कहानियों में
✗ 2. जीवंत हो उठता है
✓ 3. ग्रामीण व्यक्तिव
✗ 4. प्रेमचंद की

Question ID : **4410091626843**
Option 1 ID : **4410096425723**
Option 2 ID : **4410096425725**
Option 3 ID : **4410096425724**
Option 4 ID : **4410096425722**

Q.4 अध्यापक द्वारा साहित्यिक रचना का रूप-विश्लेशण किया गया।

वर्तनी की दृष्टि से दिए गए वाक्य के किस अंश में त्रुटि है?

Ans
✗ 1. अध्यापक द्वारा
✗ 2. साहित्यिक रचना
✗ 3. किया गया
✓ 4. का रूप-विश्लेशण

Question ID : **4410091626850**
Option 1 ID : **4410096425750**
Option 2 ID : **4410096425751**
Option 3 ID : **4410096425753**
Option 4 ID : **4410096425752**

QuickSarkari.com | WhatsApp Channel | Telegram: t.me/quick_sarkari

Q.5 उपयुक्त 'कारक' चिह्न का चयन कर रिक्त स्थान की पूर्ति कीजिए।
'यह शालू .....पुस्तक है।'

Ans
✗ 1. पर
✗ 2. को
✗ 3. हे
✓ 4. की

Question ID : **4410091524750**
Option 1 ID : **4410096022207**
Option 2 ID : **4410096022209**
Option 3 ID : **4410096022210**
Option 4 ID : **4410096022208**

Q.6 दिए गए वाक्य के किस भाग में त्रुटि है?
सहज भाषा पाने के लिए कठोर तप अवश्यक है।

Ans
✗ 1. सहज भाषा
✗ 2. कठोर तप
✓ 3. अवश्यक है।
✗ 4. पाने के लिए

Question ID : **4410091618456**
Option 1 ID : **4410096392695**
Option 2 ID : **4410096392697**
Option 3 ID : **4410096392698**
Option 4 ID : **4410096392696**

Q.7 दिये गए वाक्य के रेखांकित शब्द का पर्यायवाची शब्द चुनिए –

मंदिर के गर्भगृह में दुर्गा माँ की कंचन आभा वाली मूर्ति स्थापित है।

Ans
✗ 1. शीशा
✗ 2. नग
✗ 3. कंजन
✓ 4. कनक

Question ID : **4410091547265**
Option 1 ID : **4410096111928**
Option 2 ID : **4410096111929**
Option 3 ID : **4410096111930**
Option 4 ID : **4410096111927**

QuickSarkari.com | WhatsApp Channel | Telegram: t.me/quick_sarkari

Q.8 दिए गए वाक्यांश के लिए सार्थक शब्द चुनिए -
' जो मन को हर ले '

Ans
✗ 1. प्रियतम
✗ 2. हार
✓ 3. मनोहर
✗ 4. मनहार

Question ID : **4410091286144**
Option 1 ID : **4410095076353**
Option 2 ID : **4410095076350**
Option 3 ID : **4410095076352**
Option 4 ID : **4410095076351**

Q.9 दिए गए वाक्य को उचित क्रिया शब्द से पूर्ण कीजिए।
'पुलिस ने उसका सामान _____।'

Ans
✗ 1. फेंका दिया
✓ 2. फेंका
✗ 3. फेंके
✗ 4. फेंकी

Question ID : **4410091237816**
Option 1 ID : **4410094884799**
Option 2 ID : **4410094884796**
Option 3 ID : **4410094884798**
Option 4 ID : **4410094884797**

Q.10 नीचे लिखे वाक्य के लिए उचित विशेषण चुनिए।
'_____ व्यक्तियों ने इस बात का विरोध किया।'

Ans
✗ 1. एक
✓ 2. लगभग
✗ 3. चारों
✗ 4. किलो भर

Question ID : **4410091237904**
Option 1 ID : **4410094885144**
Option 2 ID : **4410094885146**
Option 3 ID : **4410094885145**
Option 4 ID : **4410094885147**

QuickSarkari.com | WhatsApp Channel | Telegram: t.me/quick_sarkari

Q.11 उपयुक्त संप्रदान कारक के प्रयोग से वाक्य को पूर्ण कीजिए।
नर्स रोगी ..... दवा ला रही है।

Ans
✔ 1. के लिए
✘ 2. का
✘ 3. से
✘ 4. की

Question ID : **4410091251185**
Option 1 ID : **4410094937921**
Option 2 ID : **4410094937923**
Option 3 ID : **4410094937922**
Option 4 ID : **4410094937924**

Q.12 निम्नलिखित विकल्पों में से कौन-से वाक्य में वर्तनी से संबंधित त्रुटि नहीं है?

Ans
✔ 1. वाल्मीकि रामायण की रचना संस्कृत भाषा में हुई है।
✘ 2. वाल्मीकी रामायण की रचना संस्कृत भाषा में हुई है।
✘ 3. बाल्मीकि रामायण की रचना संस्कृत भाषा में हुई है।
✘ 4. वल्मीकी रामायण की रचना संस्कृत भाषा में हुई है।

Question ID : **4410091530665**
Option 1 ID : **4410096045744**
Option 2 ID : **4410096045743**
Option 3 ID : **4410096045745**
Option 4 ID : **4410096045746**

Q.13 निम्नलिखित वाक्य के रेखांकित शब्द का पर्यायवाची कौन-सा है?
'आज दूध बहुत मीठा था।'

Ans
✘ 1. मामला
✘ 2. खुला
✘ 3. प्रमुख
✔ 4. मिष्ठ

Question ID : **4410091530846**
Option 1 ID : **4410096046468**
Option 2 ID : **4410096046469**
Option 3 ID : **4410096046470**
Option 4 ID : **4410096046467**

Quick Sarkari

Q.14 उपयुक्त कालवाचक क्रिया-विशेषण के प्रयोग से वाक्य पूरा करें-
श्यामा ..... खेलती रहती है।

Ans
✔ 1. हमेशा
✘ 2. बहुत
✘ 3. जल्दी-जल्दी
✘ 4. वहाँ

Question ID : **4410091251220**
Option 1 ID : **4410094938061**
Option 2 ID : **4410094938064**
Option 3 ID : **4410094938062**
Option 4 ID : **4410094938063**

Q.15 दिए गए वाक्यांश के लिए सार्थक शब्द चुनें-
नहीं खाने योग्य

Ans
✔ 1. अखाद्य
✘ 2. खाद्य
✘ 3. अभेद
✘ 4. भोग

Question ID : **4410091333080**
Option 1 ID : **4410095263944**
Option 2 ID : **4410095263946**
Option 3 ID : **4410095263945**
Option 4 ID : **4410095263947**

Comprehension:

गद्यांश को पढ़कर निम्नलिखित प्रश्नों के उत्तर दीजिए।
रात्रि अपनी भीषणताओं के साथ चलती रहती और उसकी सारी भीषणता को, ताल ठोककर, ललकारती रहती थी—सिर्फ़ पहलवान की ढोलक! संध्या से लेकर प्रातःकाल तक एक ही गति से बजती रहती—'चट्-धा, गिड़-धा,...चट्-धा, गिड़ धा!' यानी 'आ जा भिड़ जा, आ जा भिड़ जा!'...बीच-बीच में—'चटाक्-चट्-धा, चटाक्-चट्-धा!' यानी 'उठाकर पटक दे! उठाकर पटक दे!' यही आवाज़ मृत-गाँव में संजीवनी शक्ति भरती रहती थी। लुट्टन सिंह पहलवान! यों तो वह कहा करता था—'लुट्टन सिंह पहलवान को होल इंडिया भर के लोग जानते हैं', किंतु उसके 'होल-इंडिया' की सीमा शायद एक जिले की सीमा के बराबर ही हो। जिले भर के लोग उसके नाम से अवश्य परिचित थे। लुट्टन के माता-पिता उसे नौ वर्ष की उम्र में ही अनाथ बनाकर चल बसे थे। सौभाग्यवश शादी हो चुकी थी, वरना वह भी माँ-बाप का अनुसरण करता। विधवा सास ने पाल-पोस कर बड़ा किया।बचपन में वह गाय चराता, धारोष्ण दूध पीता और कसरत किया करता था। गाँव के लोग उसकी सास को तरह-तरह की तकलीफ़ दिया करते थे; लुट्टन के सिर पर कसरत की धुन लोगों से बदला लेने के लिए ही सवार हुई थी।

SubQuestion No : 16

Q.16 दिए गए गद्यांश के लिए उपयुक्त शीर्षक का चयन कीजिए।

Ans
✔ 1. पहलवान की ढोलक
✘ 2. पहलवान की लाठी
✘ 3. रात्रि की नीरवता
✘ 4. प्रातःकाल का समय

Question ID : **4410091524022**
Option 1 ID : **4410096019367**
Option 2 ID : **4410096019369**
Option 3 ID : **4410096019368**
Option 4 ID : **4410096019370**

Comprehension:

गद्यांश को पढ़कर निम्नलिखित प्रश्नों के उत्तर दीजिए।
रात्रि अपनी भीषणताओं के साथ चलती रहती और उसकी सारी भीषणता को, ताल ठोककर, ललकारती रहती थी—सिर्फ़ पहलवान की ढोलक! संध्या से लेकर प्रातःकाल तक एक ही गति से बजती रहती—'चट्-धा, गिड़-धा,...चट्-धा, गिड़ धा!' यानी 'आ जा भिड़ जा, आ जा भिड़ जा!'...बीच-बीच में—'चटाक्-चट्-धा, चटाक्-चट्-धा!' यानी 'उठाकर पटक दे! उठाकर पटक दे!' यही आवाज़ मृत-गाँव में संजीवनी शक्ति भरती रहती थी। लुट्टन सिंह पहलवान! यों तो वह कहा करता था—'लुट्टन सिंह पहलवान को होल इंडिया भर के लोग जानते हैं', किंतु उसके 'होल-इंडिया' की सीमा शायद एक जिले की सीमा के बराबर ही हो। जिले भर के लोग उसके नाम से अवश्य परिचित थे। लुट्टन के माता-पिता उसे नौ वर्ष की उम्र में ही अनाथ बनाकर चल बसे थे। सौभाग्यवश शादी हो चुकी थी, वरना वह भी माँ-बाप का अनुसरण करता। विधवा सास ने पाल-पोस कर बड़ा किया।बचपन में वह गाय चराता, धारोष्ण दूध पीता और कसरत किया करता था। गाँव के लोग उसकी सास को तरह-तरह की तकलीफ़ दिया करते थे; लुट्टन के सिर पर कसरत की धुन लोगों से बदला लेने के लिए ही सवार हुई थी।

SubQuestion No : 17

Q.17 रात्रि की भीषणता को कौन ललकारती रहती थी ?

Ans

✗ 1. रात्रि का प्रहरी

✗ 2. गाँव के लोग

✗ 3. पुलिस प्रशासन

✓ 4. पहलवान की ढोलक

Question ID : **4410091524023**
Option 1 ID : **4410096019373**
Option 2 ID : **4410096019371**
Option 3 ID : **4410096019374**
Option 4 ID : **4410096019372**

Comprehension:

गद्यांश को पढ़कर निम्नलिखित प्रश्नों के उत्तर दीजिए।
रात्रि अपनी भीषणताओं के साथ चलती रहती और उसकी सारी भीषणता को, ताल ठोककर, ललकारती रहती थी—सिर्फ़ पहलवान की ढोलक! संध्या से लेकर प्रातःकाल तक एक ही गति से बजती रहती—'चट्-धा, गिड़-धा,...चट्-धा, गिड़ धा!' यानी 'आ जा भिड़ जा, आ जा भिड़ जा!'...बीच-बीच में—'चटाक्-चट्-धा, चटाक्-चट्-धा!' यानी 'उठाकर पटक दे! उठाकर पटक दे!' यही आवाज़ मृत-गाँव में संजीवनी शक्ति भरती रहती थी। लुट्टन सिंह पहलवान! यों तो वह कहा करता था—'लुट्टन सिंह पहलवान को होल इंडिया भर के लोग जानते हैं', किंतु उसके 'होल-इंडिया' की सीमा शायद एक जिले की सीमा के बराबर ही हो। जिले भर के लोग उसके नाम से अवश्य परिचित थे। लुट्टन के माता-पिता उसे नौ वर्ष की उम्र में ही अनाथ बनाकर चल बसे थे। सौभाग्यवश शादी हो चुकी थी, वरना वह भी माँ-बाप का अनुसरण करता। विधवा सास ने पाल-पोस कर बड़ा किया।बचपन में वह गाय चराता, धारोष्ण दूध पीता और कसरत किया करता था। गाँव के लोग उसकी सास को तरह-तरह की तकलीफ़ दिया करते थे; लुट्टन के सिर पर कसरत की धुन लोगों से बदला लेने के लिए ही सवार हुई थी।

SubQuestion No : 18

Q.18 पहलवान का नाम क्या था ?

Ans

✗ 1. गुड्डन सिंह

✓ 2. लुट्टन सिंह

✗ 3. चन्दन सिंह

✗ 4. छुट्टन सिंह

Question ID : **4410091524024**
Option 1 ID : **4410096019377**
Option 2 ID : **4410096019376**
Option 3 ID : **4410096019378**
Option 4 ID : **4410096019375**

Comprehension:

गद्यांश को पढ़कर निम्नलिखित प्रश्नों के उत्तर दीजिए।
रात्रि अपनी भीषणताओं के साथ चलती रहती और उसकी सारी भीषणता को, ताल ठोककर, ललकारती रहती थी—सिर्फ़ पहलवान की ढोलक! संध्या से लेकर प्रातःकाल तक एक ही गति से बजती रहती—'चट्-धा, गिड़-धा,...चट्-धा, गिड़ धा!' यानी 'आ जा भिड़ जा, आ जा भिड़ जा!'...बीच-बीच में—'चटाक्-चट्-धा, चटाक्-चट्-धा!' यानी 'उठाकर पटक दे! उठाकर पटक दे!' यही आवाज़ मृत-गाँव में संजीवनी शक्ति भरती रहती थी। लुट्टन सिंह पहलवान! यों तो वह कहा करता था—'लुट्टन सिंह पहलवान को होल इंडिया भर के लोग जानते हैं', किंतु उसके 'होल-इंडिया' की सीमा शायद एक जिले की सीमा के बराबर ही हो। जिले भर के लोग उसके नाम से अवश्य परिचित थे। लुट्टन के माता-पिता उसे नौ वर्ष की उम्र में ही अनाथ बनाकर चल बसे थे। सौभाग्यवश शादी हो चुकी थी, वरना वह भी माँ-बाप का अनुसरण करता। विधवा सास ने पाल-पोस कर बड़ा किया।बचपन में वह गाय चराता, धारोष्ण दूध पीता और कसरत किया करता था। गाँव के लोग उसकी सास को तरह-तरह की तकलीफ़ दिया करते थे; लुट्टन के सिर पर कसरत की धुन लोगों से बदला लेने के लिए ही सवार हुई थी।

SubQuestion No : 19

Q.19 गद्यांश में प्रयुक्त 'शक्ति' का पर्यायवाची शब्द कौन है ?

Ans

✗ 1. शपथ

✗ 2. शासन

✓ 3. क्षमता

✗ 4. शत्रु

Question ID : **4410091524025**
Option 1 ID : **4410096019382**
Option 2 ID : **4410096019380**
Option 3 ID : **4410096019381**
Option 4 ID : **4410096019379**

Comprehension:

गद्यांश को पढ़कर निम्नलिखित प्रश्नों के उत्तर दीजिए।
रात्रि अपनी भीषणताओं के साथ चलती रहती और उसकी सारी भीषणता को, ताल ठोककर, ललकारती रहती थी—सिर्फ़ पहलवान की ढोलक! संध्या से लेकर प्रातःकाल तक एक ही गति से बजती रहती—'चट्-धा, गिड़-धा,...चट्-धा, गिड़ धा!' यानी 'आ जा भिड़ जा, आ जा भिड़ जा!'...बीच-बीच में—'चटाक्-चट्-धा, चटाक्-चट्-धा!' यानी 'उठाकर पटक दे! उठाकर पटक दे!' यही आवाज़ मृत-गाँव में संजीवनी शक्ति भरती रहती थी। लुट्टन सिंह पहलवान! यों तो वह कहा करता था—'लुट्टन सिंह पहलवान को होल इंडिया भर के लोग जानते हैं', किंतु उसके 'होल-इंडिया' की सीमा शायद एक जिले की सीमा के बराबर ही हो। जिले भर के लोग उसके नाम से अवश्य परिचित थे। लुट्टन के माता-पिता उसे नौ वर्ष की उम्र में ही अनाथ बनाकर चल बसे थे। सौभाग्यवश शादी हो चुकी थी, वरना वह भी माँ-बाप का अनुसरण करता। विधवा सास ने पाल-पोस कर बड़ा किया।बचपन में वह गाय चराता, धारोष्ण दूध पीता और कसरत किया करता था। गाँव के लोग उसकी सास को तरह-तरह की तकलीफ़ दिया करते थे; लुट्टन के सिर पर कसरत की धुन लोगों से बदला लेने के लिए ही सवार हुई थी।

SubQuestion No : 20

Q.20 गद्यांश में प्रयुक्त 'परिचित' का विलोम शब्द कौन है ?

Ans

✓ 1. अपरिचित

✗ 2. अपरिमित

✗ 3. अपरुष

✗ 4. अपरिपुष्ट

Question ID : **4410091524026**
Option 1 ID : **4410096019386**
Option 2 ID : **4410096019383**
Option 3 ID : **4410096019385**
Option 4 ID : **4410096019384**

Section : **Discipline1**

Q.1 **In terms of educational planning, what did the Radha Krishnan Commission suggest for effective development of higher education?**

Ans
✗ 1. Allowing each university to plan independently

✓ 2. Establishing a national body for university coordination

✗ 3. Abolishing creation of planning bodies in education

✗ 4. Decentralizing all higher education planning

Question ID : **4410091678824**
Option 1 ID : **4410096623507**
Option 2 ID : **4410096623506**
Option 3 ID : **4410096623508**
Option 4 ID : **4410096623505**

Q.2 **What challenges do children from tribal regions face in the Indian education system?**

Ans
✗ 1. Overwhelming access to digital platforms.

✓ 2. Lack of materials and teachers proficient in indigenous languages.

✗ 3. Excessive focus on extracurricular activities.

✗ 4. Difficulty in learning multiple foreign languages.

Question ID : **4410091651986**
Option 1 ID : **4410096523810**
Option 2 ID : **4410096523811**
Option 3 ID : **4410096523812**
Option 4 ID : **4410096523813**

Q.3 **Which of the following best describes the principle of 'orderly progression' in child growth and development?**

Ans
✗ 1. Growth stops after infancy and does not proceed.

✓ 2. Development follows a predictable sequence from simple to complex.

✗ 3. Development occurs randomly without any sequence.

✗ 4. All children develop at the same rate.

Question ID : **4410091647789**
Option 1 ID : **4410096507415**
Option 2 ID : **4410096507413**
Option 3 ID : **4410096507414**
Option 4 ID : **4410096507416**

QuickSarkari.com | WhatsApp Channel | Telegram: t.me/quick_sarkari

Q.4 **A country where people speak different languages, follow different religions, and have diverse cultural practices can be described as:**

Ans
✗ 1. Uniform in culture and religion
✗ 2. Monolingual and monocultural
✗ 3. Hierarchical and caste-based
✓ 4. Multilingual, multireligious, and multicultural

Question ID : **4410091546714**
Option 1 ID : **4410096109738**
Option 2 ID : **4410096109737**
Option 3 ID : **4410096109736**
Option 4 ID : **4410096109735**

Q.5 **Which stage is known for the development of self-concept in children?**

Ans
✗ 1. Adulthood
✓ 2. Middle childhood
✗ 3. Infancy
✗ 4. Adolescence

Question ID : **4410091627283**
Option 1 ID : **4410096427421**
Option 2 ID : **4410096427419**
Option 3 ID : **4410096427418**
Option 4 ID : **4410096427420**

Q.6 **Which intervention best supports learners from low-literacy backgrounds?**

Ans
✗ 1. Extra homework assignments
✗ 2. Reading aloud in class
✗ 3. Peer tutoring only
✓ 4. Use visual learning aids

Question ID : **4410091628080**
Option 1 ID : **4410096430498**
Option 2 ID : **4410096430500**
Option 3 ID : **4410096430501**
Option 4 ID : **4410096430499**

Q.7 **Which constitutional value is violated if school morals are based on one religion?**

Ans
✓ 1. The principle of secularism, which requires state neutrality in matters of religion
✗ 2. The commitment to equality, particularly in terms of gender inclusion
✗ 3. The guarantee of liberty of thought and expression within educational institutions
✗ 4. The objective of economic justice in ensuring equitable educational outcomes

Question ID : **4410091628589**
Option 1 ID : **4410096432506**
Option 2 ID : **4410096432508**
Option 3 ID : **4410096432509**
Option 4 ID : **4410096432507**

QuickSarkari.com | WhatsApp Channel | Telegram: t.me/quick_sarkari

Q.8 **Which words were added to the "Preamble of the Constitution of India" through the 42nd Amendment (1976)?**

Ans
- ✗ 1. Republic and Justice
- ✗ 2. Sovereign and Democratic
- ✗ 3. Liberty and Equality
- ✓ 4. Socialist and Secular

Question ID : **4410091570569**
Option 1 ID : **4410096203247**
Option 2 ID : **4410096203250**
Option 3 ID : **4410096203248**
Option 4 ID : **4410096203249**

Q.9 **Adolescents who articulate principled ideals for society yet find it challenging to implement these standards in their own lives are demonstrating a conflict between:**

Ans
- ✗ 1. Abstract reasoning and emotional regulation
- ✗ 2. Cognitive advancement and social inexperience
- ✓ 3. Hypothetical morality and realistic consequences
- ✗ 4. Real and ideal audience

Question ID : **4410091541926**
Option 1 ID : **4410096090868**
Option 2 ID : **4410096090870**
Option 3 ID : **4410096090869**
Option 4 ID : **4410096090867**

Q.10 **What is the concept of treating people differently or unfairly based on their gender called?**

Ans
- ✗ 1. Poverty
- ✗ 2. Social inclusion
- ✗ 3. Diversity
- ✓ 4. Gender discrimination

Question ID : **4410091546739**
Option 1 ID : **4410096109831**
Option 2 ID : **4410096109834**
Option 3 ID : **4410096109833**
Option 4 ID : **4410096109832**

Quick Sarkari

Q.11 During a group project, a 10-year-old takes turns leading and listening, showing concern for a teammate who is upset. Which stage-specific trait is the child displaying?

Ans
1. Self-conscious emotions like pride or shame
2. Deeper empathy and social responsibility
3. Testing limits through tantrums
4. Reflexive emotional reactions

Question ID : **4410091604057**
Option 1 ID : **4410096335419**
Option 2 ID : **4410096335418**
Option 3 ID : **4410096335421**
Option 4 ID : **4410096335420**

Q.12 According to Piaget, what is the first stage of cognitive development called?

Ans
1. Concrete-operational stage
2. Sensori-motor stage
3. Pre-operational stage
4. Formal operations stage

Question ID : **4410091678032**
Option 1 ID : **4410096620360**
Option 2 ID : **4410096620358**
Option 3 ID : **4410096620359**
Option 4 ID : **4410096620361**

Q.13 Which statement best reflects the psychological understanding of personality as a stable pattern of behaviour shaped over time?

Ans
1. It reflects cognitive skills and moral reasoning capacities.
2. It consists mainly of emotional responses and social relationships.
3. It develops through the interaction of inherited traits.
4. It is determined by physical appearance and mental abilities.

Question ID : **4410091616015**
Option 1 ID : **4410096383000**
Option 2 ID : **4410096382998**
Option 3 ID : **4410096382997**
Option 4 ID : **4410096382999**

Q.14 Girls hesitate to join science clubs due to social attitudes. What issue does this reflect?

Ans
✗ 1. Cultural festivals
✗ 2. Urbanization
✓ 3. Gender discrimination
✗ 4. Economic planning

Question ID : **4410091567597**
Option 1 ID : **4410096191690**
Option 2 ID : **4410096191688**
Option 3 ID : **4410096191689**
Option 4 ID : **4410096191691**

Q.15 Which of the following best describes Peace Education?

Ans
✗ 1. It focuses on science and technology only.
✗ 2. It promotes strict discipline through punishment.
✗ 3. It discourages group cohesiveness.
✓ 4. It teaches values of non-violence and tolerance.

Question ID : **4410091696453**
Option 1 ID : **4410096691702**
Option 2 ID : **4410096691701**
Option 3 ID : **4410096691704**
Option 4 ID : **4410096691703**

Q.16 On what must the curriculum focus to meet the RTE's stress-free learning mandate?

Ans
✓ 1. Total learning experience
✗ 2. Detailed assessment blueprints
✗ 3. Specific subject content scope
✗ 4. Teacher-student qualification rules

Question ID : **4410091557209**
Option 1 ID : **4410096151367**
Option 2 ID : **4410096151368**
Option 3 ID : **4410096151365**
Option 4 ID : **4410096151366**

Q.17 Which stage is characterized by object permanence?

Ans
✗ 1. Concrete operational stage
✓ 2. Sensorimotor stage
✗ 3. Formal operational stage
✗ 4. Preoperational stage

Question ID : **4410091533788**
Option 1 ID : **4410096058340**
Option 2 ID : **4410096058342**
Option 3 ID : **4410096058341**
Option 4 ID : **4410096058339**

QuickSarkari.com | WhatsApp Channel | Telegram: t.me/quick_sarkari

Q.18 In Kohlberg's stages of moral development, which trait is commonly seen in the pre-conventional stage?

Ans
✗ 1. Actions guided by concern for social approval
✓ 2. Decisions based on avoiding punishment
✗ 3. Behaviors directed by internalized moral codes
✗ 4. Judgments based on universal ethical principles

Question ID : **4410091630110**
Option 1 ID : **4410096438548**
Option 2 ID : **4410096438546**
Option 3 ID : **4410096438549**
Option 4 ID : **4410096438547**

Q.19 What is the main purpose of socialisation in education?

Ans
✓ 1. To learn norms and values of society
✗ 2. To prepare students for exams
✗ 3. To promote competition among students
✗ 4. To teach only academic subjects

Question ID : **4410091607672**
Option 1 ID : **4410096349652**
Option 2 ID : **4410096349655**
Option 3 ID : **4410096349654**
Option 4 ID : **4410096349653**

Q.20 Which value is NOT explicitly mentioned in the Preamble of the Indian Constitution as a guiding principle?

Ans
✓ 1. Environmental protection
✗ 2. Justice
✗ 3. Equality
✗ 4. Liberty

Question ID : **4410091607889**
Option 1 ID : **4410096350503**
Option 2 ID : **4410096350500**
Option 3 ID : **4410096350502**
Option 4 ID : **4410096350501**

Section : **Discipline2**

QuickSarkari.com | WhatsApp Channel | Telegram: t.me/quick_sarkari

Q.1 **Which of the following best describes 'Learning to Observe' as discussed in the context of self-understanding?**

Ans
✗ 1. It requires ignoring one's emotions, feelings, and actions subjectively.

✗ 2. It means copying others' behaviors and actions objectively.

✗ 3. It encourages immediate reactions to any incidents.

✓ 4. It involves paying attention to one's thoughts, feelings, and actions objectively.

Question ID : **4410091650000**
Option 1 ID : **4410096516119**
Option 2 ID : **4410096516121**
Option 3 ID : **4410096516120**
Option 4 ID : **4410096516118**

Q.2 **What is mindfulness primarily focused on?**

Ans
✗ 1. Analyzing past experiences

✗ 2. Planning for the future

✗ 3. Suppressing emotions

✓ 4. Being intensely aware of the present moment without judgment

Question ID : **4410091611632**
Option 1 ID : **4410096365385**
Option 2 ID : **4410096365383**
Option 3 ID : **4410096365386**
Option 4 ID : **4410096365384**

Q.3 **How does literature support the development of critical thinking in early literacy classrooms?**

Ans
✓ 1. By encouraging children to interpret meanings and make connections.

✗ 2. By focusing mainly on handwriting practice.

✗ 3. By requiring children to memorize facts from stories.

✗ 4. By having children repeat sentences after the teacher.

Question ID : **4410091651130**
Option 1 ID : **4410096520630**
Option 2 ID : **4410096520633**
Option 3 ID : **4410096520631**
Option 4 ID : **4410096520632**

Q.4 **Which of the following best describes cultural lag?**

Ans
✓ 1. The delay in non-material culture catching up with the changes in material culture

✗ 2. A subculture that opposes the dominant culture

✗ 3. A smaller cultural group within a larger culture

✗ 4. The gap between ideal culture and real culture

Question ID : **4410091576576**
Option 1 ID : **4410096227117**
Option 2 ID : **4410096227116**
Option 3 ID : **4410096227118**
Option 4 ID : **4410096227115**

Quick Sarkari

Q.5 **Peer tutoring is effective because tutors and learners often share a:**

Ans
- ✔ 1. Common language and understanding
- ✘ 2. Comparable academic training
- ✘ 3. Similar learning pace
- ✘ 4. Structured teaching approach

Question ID : **4410091636419**
Option 1 ID : **4410096463577**
Option 2 ID : **4410096463579**
Option 3 ID : **4410096463580**
Option 4 ID : **4410096463578**

Q.6 **A trainee counselor practices learning to observe by noting her physical sensations and thoughts during client sessions. How does this practice enhance her effectiveness as a counselor over time?**

Ans
- ✔ 1. It enables her to recognize personal biases and maintain objectivity with clients
- ✘ 2. It makes her stay emotionally distant from clients in most sessions
- ✘ 3. It leads her to agree with whatever the client says each time
- ✘ 4. It makes her focus excessively on her own feelings

Question ID : **4410091622669**
Option 1 ID : **4410096409452**
Option 2 ID : **4410096409453**
Option 3 ID : **4410096409454**
Option 4 ID : **4410096409455**

Q.7 **Which difficulty is indicated when a speaker inserts a vowel between two consonants (e.g., "s-táart")?**

Ans
- ✔ 1. L1 phonotactic constraint
- ✘ 2. Lexical retrieval speed
- ✘ 3. Grammar morpheme learning
- ✘ 4. Semantic overextension

Question ID : **4410091558177**
Option 1 ID : **4410096155051**
Option 2 ID : **4410096155050**
Option 3 ID : **4410096155053**
Option 4 ID : **4410096155052**

Q.8 **What does the scope of multilingualism primarily encompass?**

Ans
- ✔ 1. Promoting communication across cultures
- ✘ 2. Reducing opportunities for education
- ✘ 3. Restricting interaction to a single language
- ✘ 4. Limiting cultural exchange

Question ID : **4410091547672**
Option 1 ID : **4410096113531**
Option 2 ID : **4410096113533**
Option 3 ID : **4410096113532**
Option 4 ID : **4410096113534**

QuickSarkari.com | WhatsApp Channel | Telegram: t.me/quick_sarkari

Q.9 **Which pattern best reflects group conformity when members align their actions with the group's expectations?**

Ans
✔ 1. Norm adherence
✘ 2. Role ambiguity
✘ 3. Task avoidance
✘ 4. Leadership emergence

Question ID : **4410091632871**
Option 1 ID : **4410096449603**
Option 2 ID : **4410096449605**
Option 3 ID : **4410096449604**
Option 4 ID : **4410096449602**

Q.10 **A group of student-teachers reflect together after a guided body scan exercise and share their observations about physical tension. According to mindfulness approaches, what is the key purpose of this collective reflection?**

Ans
✘ 1. To compare who felt the most relaxed among peers
✘ 2. To determine who needs more physical exercise
✘ 3. To evaluate each other's teaching styles
✔ 4. To connect personal experiences with deeper self-insights

Question ID : **4410091606187**
Option 1 ID : **4410096343773**
Option 2 ID : **4410096343775**
Option 3 ID : **4410096343774**
Option 4 ID : **4410096343772**

Q.11 **If a teacher notices students seem confused and provides a prompt to encourage deeper thinking, which pedagogical skill is being demonstrated?**

Ans
✘ 1. Repetition
✘ 2. Scaffolding
✘ 3. Reinforcement
✔ 4. Probing

Question ID : **4410091681791**
Option 1 ID : **4410096634540**
Option 2 ID : **4410096634541**
Option 3 ID : **4410096634539**
Option 4 ID : **4410096634538**

QuickSarkari.com | WhatsApp Channel | Telegram: t.me/quick_sarkari

Q.12 What is necessary for multilingual speakers to engage in a bilingual mode during conversation?

Ans
✗ 1. A strict alternation after each sentence
✗ 2. An automatic response due to bilingual competence
✓ 3. A mutually established agreement on appropriateness
✗ 4. The absence of any formality

Question ID : **4410091644978**
Option 1 ID : **4410096496447**
Option 2 ID : **4410096496449**
Option 3 ID : **4410096496446**
Option 4 ID : **4410096496448**

Q.13 In peer tutoring, what role does the tutor play in supporting their peer's learning process?

Ans
✗ 1. The tutor assigns all homework without explanation.
✓ 2. The tutor explains concepts and provides feedback.
✗ 3. The tutor takes attendance rather than teaching.
✗ 4. The tutor grades final exams without discussion.

Question ID : **4410091641459**
Option 1 ID : **4410096482948**
Option 2 ID : **4410096482947**
Option 3 ID : **4410096482949**
Option 4 ID : **4410096482950**

Q.14 Knowledge relating to the step-by-step procedure for doing a certain mathematical task is categorized as which type of knowledge?

Ans
✗ 1. Conceptual knowledge
✓ 2. Procedural knowledge
✗ 3. Contextual knowledge
✗ 4. Abstract knowledge

Question ID : **4410091550564**
Option 1 ID : **4410096124716**
Option 2 ID : **4410096124718**
Option 3 ID : **4410096124717**
Option 4 ID : **4410096124715**

QuickSarkari.com | WhatsApp Channel | Telegram: t.me/quick_sarkari

Q.15 In curriculum development, which approach emphasizes the integration of various subjects to address social issues and foster holistic understanding?

Ans
✗ 1. Behaviorist approach
✓ 2. Interdisciplinary approach
✗ 3. Hidden curriculum
✗ 4. Subject-centered approach

Question ID : **4410091624624**
Option 1 ID : **4410096417030**
Option 2 ID : **4410096417028**
Option 3 ID : **4410096417029**
Option 4 ID : **4410096417027**

Q.16 How does experiential learning benefit students' understanding of complex topics?

Ans
✗ 1. It makes students depend on peer explanations only
✗ 2. It focuses mainly on test-taking strategies
✗ 3. It requires students to memorize information quickly
✓ 4. It allows students to actively engage and reflect on real experiences

Question ID : **4410091608411**
Option 1 ID : **4410096352558**
Option 2 ID : **4410096352559**
Option 3 ID : **4410096352556**
Option 4 ID : **4410096352557**

Q.17 Which concept refers to the process by which individuals learn to become members of community?

Ans
✓ 1. Socialization
✗ 2. Education society
✗ 3. Instruction
✗ 4. Curriculum

Question ID : **4410091690218**
Option 1 ID : **4410096667150**
Option 2 ID : **4410096667152**
Option 3 ID : **4410096667153**
Option 4 ID : **4410096667151**

QuickSarkari.com | WhatsApp Channel | Telegram: t.me/quick_sarkari

Q.18 How does language use outside the classroom support students' overall learning?

Ans
✗ 1. It is used mainly for casual conversations without contributing to academic growth

✓ 2. It helps students apply classroom knowledge and develop effective communication skills

✗ 3. It only allows students to repeat classroom lessons without additional understanding

✗ 4. It replaces classroom instruction entirely and encourages independent learning only

Question ID : **4410091542506**
Option 1 ID : **4410096093109**
Option 2 ID : **4410096093107**
Option 3 ID : **4410096093108**
Option 4 ID : **4410096093110**

Q.19 What maxim should a teacher prioritize when introducing abstract scientific concepts to first-year students?

Ans
✗ 1. From easy to difficult

✓ 2. From concrete to abstract

✗ 3. From general to particular

✗ 4. From whole to part

Question ID : **4410091629258**
Option 1 ID : **4410096435124**
Option 2 ID : **4410096435125**
Option 3 ID : **4410096435122**
Option 4 ID : **4410096435123**

Q.20 Frequent internships in higher education help assess:

Ans
✗ 1. Theoretical knowledge only

✗ 2. Only participation in classroom discussions

✗ 3. Students' ability to memorize case studies

✓ 4. Real-world application of learning and skills

Question ID : **4410091572387**
Option 1 ID : **4410096210536**
Option 2 ID : **4410096210539**
Option 3 ID : **4410096210538**
Option 4 ID : **4410096210537**

Section : **Discipline3**

QuickSarkari.com | WhatsApp Channel | Telegram: t.me/quick_sarkari

Q.1 **In a lesson about area and perimeter, a child suggests covering a desk with equal-sized tiles to find out how 'big' the desk is. Which mathematical concept is the child intuitively applying, and how should the teacher extend this activity to introduce the concept of unit?**

Ans
✗ 1. The child is applying length measurement; the teacher should use a tape to measure sides

✗ 2. The child is applying volume measurement; the teacher should stack tiles for depth

✗ 3. The child is applying perimeter measurement; the teacher should count the edges of the desk

✓ 4. The child is applying area measurement; the teacher should emphasize use of same-sized tiles as units

Question ID : **4410091623778**
Option 1 ID : **4410096413687**
Option 2 ID : **4410096413686**
Option 3 ID : **4410096413685**
Option 4 ID : **4410096413684**

Q.2 **When a neutral stimulus becomes associated with a response due to repeated pairing with a reward, this learning process is called:**

Ans
✗ 1. Trial and error learning

✓ 2. Classical conditioning

✗ 3. Insight learning

✗ 4. Operant conditioning

Question ID : **4410091548303**
Option 1 ID : **4410096115928**
Option 2 ID : **4410096115926**
Option 3 ID : **4410096115927**
Option 4 ID : **4410096115925**

Q.3 **What is a common impact of television advertising on children and adults?**

Ans
✓ 1. Influences their attitudes, preferences, and buying behavior through repeated messages

✗ 2. Encourages critical thinking and independent evaluation of all advertised products

✗ 3. Focuses only on educational content without affecting lifestyle or choices

✗ 4. Reduces exposure to consumer culture and limits commercial influences entirely

Question ID : **4410091546586**
Option 1 ID : **4410096109223**
Option 2 ID : **4410096109224**
Option 3 ID : **4410096109226**
Option 4 ID : **4410096109225**

QuickSarkari

Q.4 **Why is English considered a global language today?**

Ans
✗ 1. It is only spoken in England and has no relevance in other countries

✗ 2. It replaces all local languages in every country around the world

✓ 3. It is widely used in international communication, business, science, and education

✗ 4. It is used solely for literature studies without practical applications

Question ID : **4410091544879**
Option 1 ID : **4410096102577**
Option 2 ID : **4410096102575**
Option 3 ID : **4410096102578**
Option 4 ID : **4410096102576**

Q.5 **A school regularly reviews students' academic progress, attendance, and overall development to improve teaching practices. Which concept is best reflected by this practice?**

Ans
✗ 1. Administrative control

✗ 2. Curriculum rigidity

✓ 3. School effectiveness

✗ 4. School discipline

Question ID : **4410091685553**
Option 1 ID : **4410096649109**
Option 2 ID : **4410096649108**
Option 3 ID : **4410096649107**
Option 4 ID : **4410096649106**

Q.6 **Which of the following best describes a factor that commonly shapes gendered roles in India?**

Ans
✗ 1. Economic policies and laws

✗ 2. Religious beliefs and rituals

✓ 3. Cultural traditions and family norms

✗ 4. Climate conditions and geography

Question ID : **4410091610972**
Option 1 ID : **4410096362744**
Option 2 ID : **4410096362743**
Option 3 ID : **4410096362745**
Option 4 ID : **4410096362746**

QuickSarkari.com | WhatsApp Channel | Telegram: t.me/quick_sarkari

Q.7 During a group activity, one student with high intelligence but poor emotional well-being consistently underperforms compared to peers. Which factor is most likely impeding their learning in this context?

Ans
✗ 1. Lack of prior knowledge hindering schema building
✗ 2. Limited access to instructional strategies
✗ 3. Classroom seating arrangement
✓ 4. Emotional health affecting cognitive processing

Question ID : **4410091629793**
Option 1 ID : **4410096437257**
Option 2 ID : **4410096437259**
Option 3 ID : **4410096437260**
Option 4 ID : **4410096437258**

Q.8 During the annual conference, each of the participating members, as well as the committee chairpersons, _____ expected to submit their reports by Friday afternoon to facilitate the audit process.

Ans
✗ 1. are
✗ 2. have been
✓ 3. is
✗ 4. were

Question ID : **4410091623871**
Option 1 ID : **4410096414064**
Option 2 ID : **4410096414067**
Option 3 ID : **4410096414065**
Option 4 ID : **4410096414066**

Q.9 A Grade 2 child successfully calculates 35−27=8 using column subtraction but estimates 14+23 as 95. This performance disparity indicates a fundamental weakness in:

Ans
✗ 1. Symbolic notation usage
✗ 2. Conceptual understanding mastery
✓ 3. Arithmetic fact recall
✗ 4. Procedural algorithmic fluency

Question ID : **4410091550577**
Option 1 ID : **4410096124770**
Option 2 ID : **4410096124769**
Option 3 ID : **4410096124768**
Option 4 ID : **4410096124767**

QuickSarkari.com | WhatsApp Channel | Telegram: t.me/quick_sarkari

Q.10 A primary school teacher is designing an assessment. She wants to include a question about collective nouns. Which sentence below correctly demonstrates subject–verb agreement for a collective noun acting as a single unit?

Ans
✗ 1. The team was winning the match.
✗ 2. The team are winning the match.
✓ 3. The team is winning the match.
✗ 4. The team have winning the match.

Question ID : **4410091683632**
Option 1 ID : **4410096641457**
Option 2 ID : **4410096641455**
Option 3 ID : **4410096641454**
Option 4 ID : **4410096641456**

Q.11 What collaborative attitude aligns with NEP vision for facilitators?

Ans
✗ 1. Hierarchical delegation assigning roles based on perceived ability ranks.
✗ 2. Independent tasks minimizing interactions to deepen individual focus areas.
✗ 3. Expert modeling demonstrating ideal responses for imitation by groups.
✓ 4. Co-creating knowledge through peer dialogue and shared ownership models.

Question ID : **4410091563750**
Option 1 ID : **4410096176572**
Option 2 ID : **4410096176571**
Option 3 ID : **4410096176570**
Option 4 ID : **4410096176569**

Q.12 Designing a school "from scratch" means:

Ans
✗ 1. Adding new activities while keeping the basic school system unchanged
✗ 2. Keeping traditional school practices without reviewing their purpose
✗ 3. Using standard curriculum models without changing existing structures
✓ 4. Setting clear goals first and redesigning all parts of schooling to meet them

Question ID : **4410091547834**
Option 1 ID : **4410096114170**
Option 2 ID : **4410096114167**
Option 3 ID : **4410096114169**
Option 4 ID : **4410096114168**

Q.13 What is the primary objective of NGOs in school governance?

Ans
✗ 1. They focus solely on political activities
✓ 2. They promote sustainable development
✗ 3. They are government-owned organizations
✗ 4. They only work in urban areas

Question ID : **4410091623427**
Option 1 ID : **4410096412304**
Option 2 ID : **4410096412307**
Option 3 ID : **4410096412306**
Option 4 ID : **4410096412305**

Q.14 **Which of the following is the human sexual behaviour that follows a social script that is embedded in societal expectations and norms?**

Ans
- ✔ 1. Sexual script
- ✘ 2. Interpersonal script
- ✘ 3. Gender script
- ✘ 4. Intrapsychic script

Question ID : **4410091546969**
Option 1 ID : **4410096110746**
Option 2 ID : **4410096110747**
Option 3 ID : **4410096110748**
Option 4 ID : **4410096110749**

Q.15 **A child uses paper boxes as "cars," assigns peers as "drivers," establishes simple traffic rules, and oversees the roadway setup. This situation reflects:**

Ans
- ✘ 1. Functional play carried out under direct teacher guidance
- ✘ 2. Exploratory play undertaken independently without group interaction
- ✔ 3. A combined form of symbolic play and early games-with-rules behaviour
- ✘ 4. Symbolic play occurring without meaningful social involvement

Question ID : **4410091547005**
Option 1 ID : **4410096110892**
Option 2 ID : **4410096110893**
Option 3 ID : **4410096110891**
Option 4 ID : **4410096110890**

Q.16 **Which statement correctly describes the spread of English as a global language?**

Ans
- ✔ 1. English serves as a common language among diverse speakers
- ✘ 2. English is the only global language
- ✘ 3. Everyone in the world speaks English as their first language
- ✘ 4. English is the official language in every country

Question ID : **4410091651401**
Option 1 ID : **4410096521556**
Option 2 ID : **4410096521558**
Option 3 ID : **4410096521557**
Option 4 ID : **4410096521559**

QuickSarkari.com | WhatsApp Channel | Telegram: t.me/quick_sarkari

Q.17 **Which personal quality is foundational for an educator, seeking to establish an objective and unbiased relationship, thereby preventing the unconscious use of stereotypes?**

Ans
- ✔ 1. Genuine Empathy
- ✘ 2. Subject Matter Mastery
- ✘ 3. Professional Humour
- ✘ 4. Organizational Clarity

Question ID : **4410091558722**
Option 1 ID : **4410096157282**
Option 2 ID : **4410096157280**
Option 3 ID : **4410096157283**
Option 4 ID : **4410096157281**

Q.18 **A key concern regarding television advertising aimed at children is that it:**

Ans
- ✘ 1. Develops independent thinking skills
- ✔ 2. Encourages materialistic values and desires
- ✘ 3. Improves nutritional awareness reliably
- ✘ 4. Promotes physical activity consistently

Question ID : **4410091604480**
Option 1 ID : **4410096337093**
Option 2 ID : **4410096337090**
Option 3 ID : **4410096337092**
Option 4 ID : **4410096337091**

Q.19 **A primary teacher is designing a classroom activity where students must estimate the number of seeds in a watermelon before counting. This task is most aligned with which objective of teaching mathematics at the elementary stage?**

Ans
- ✘ 1. Assessment of proof-writing abilities
- ✘ 2. Knowledge acquisition through memorizing facts
- ✔ 3. Skill-building with emphasis on estimation and reasoning
- ✘ 4. Attitudinal development towards collaborative work

Question ID : **4410091629660**
Option 1 ID : **4410096436729**
Option 2 ID : **4410096436726**
Option 3 ID : **4410096436727**
Option 4 ID : **4410096436728**

QuickSarkari.com | WhatsApp Channel | Telegram: t.me/quick_sarkari

Q.20 **A 4-year-old builds a block tower while commenting to herself about stability and balance, occasionally watching peers but not engaging them. Which classification best captures this play episode?**

Ans
✔ 1. Parten: Parallel; Piaget: Constructive play; Vygotsky: Self-guided private speech

✘ 2. Parten: Solitary; Piaget: Practice play; Vygotsky: Other-regulation

✘ 3. Parten: Onlooker; Piaget: Symbolic play; Vygotsky: Private speech scaffolding

✘ 4. Parten: Cooperative; Piaget: Games with rules; Vygotsky: Zone of proximal development

Question ID : **4410091563118**
Option 1 ID : **4410096174037**
Option 2 ID : **4410096174035**
Option 3 ID : **4410096174036**
Option 4 ID : **4410096174038**

Section : **Discipline4**

Q.1 **In formative writing assessment per NEP 2020 influences, what role do peer conferences play alongside teacher feedback in primary classrooms?**

Ans
✘ 1. Enforce uniform grading without individual reflection

✘ 2. Replace teacher evaluation to reduce workload entirely

✔ 3. Expose learners to diverse styles fostering self-correction

✘ 4. Limit focus to mechanical errors without content review

Question ID : **4410091564482**
Option 1 ID : **4410096179508**
Option 2 ID : **4410096179505**
Option 3 ID : **4410096179506**
Option 4 ID : **4410096179507**

Q.2 **What is the main purpose of micro-teaching in teacher education?**

Ans
✘ 1. To replace full classroom teaching with pre-recorded lessons for students

✘ 2. To test students' knowledge using short exercises and written assignments

✔ 3. To allow teachers to practice specific skills in a controlled environment

✘ 4. To complete administrative tasks related to classroom management efficiently

Question ID : **4410091548010**
Option 1 ID : **4410096114754**
Option 2 ID : **4410096114755**
Option 3 ID : **4410096114753**
Option 4 ID : **4410096114756**

QuickSarkari.com | WhatsApp Channel | Telegram: t.me/quick_sarkari

Q.3 According to the first principle of interactive language teaching, who is primarily responsible for language learning?

Ans
✗ 1. The textbook author
✗ 2. The teacher
✓ 3. The student
✗ 4. The curriculum designer

Question ID : **4410091635496**
Option 1 ID : **4410096460006**
Option 2 ID : **4410096460003**
Option 3 ID : **4410096460004**
Option 4 ID : **4410096460005**

Q.4 In what way should a textbook's design cater to its intended age group?

Ans
✓ 1. It should match the learners' age and developmental level
✗ 2. It should consider developmental stages only at primary level.
✗ 3. It should mimic higher education textbooks only.
✗ 4. It should use advanced language throughout.

Question ID : **4410091659904**
Option 1 ID : **4410096553681**
Option 2 ID : **4410096553684**
Option 3 ID : **4410096553683**
Option 4 ID : **4410096553682**

Q.5 A school with strong leadership, clear vision, and consistent evaluation practices would most likely show which result in effectiveness measurement?

Ans
✗ 1. More sports trophies
✗ 2. Increased lunch breaks
✓ 3. Improved student performance
✗ 4. Longer school hours

Question ID : **4410091637194**
Option 1 ID : **4410096466333**
Option 2 ID : **4410096466332**
Option 3 ID : **4410096466331**
Option 4 ID : **4410096466334**

Q.6 Which approach most effectively promotes both equality and justice in a diverse classroom setting?

Ans
✓ 1. Adapting instruction to student needs
✗ 2. Measuring progress only by group averages
✗ 3. Using the same assessments for all students
✗ 4. Following majority cultural norms in lessons

Question ID : **4410091624037**
Option 1 ID : **4410096414728**
Option 2 ID : **4410096414730**
Option 3 ID : **4410096414729**
Option 4 ID : **4410096414731**

QuickSarkari.com | WhatsApp Channel | Telegram: t.me/quick_sarkari

Q.7 **A teacher is designing a lesson on describing family members with adjectives for Class 3. To adhere to curriculum alignment, what should the teacher do while planning the session?**

Ans
✗ 1. List general aims without linking to outcomes

✗ 2. Plan activities based on teacher preferences

✓ 3. Map each activity to the stated learning outcomes

✗ 4. Focus solely on textbook exercises

Question ID : **4410091609039**
Option 1 ID : **4410096355073**
Option 2 ID : **4410096355075**
Option 3 ID : **4410096355072**
Option 4 ID : **4410096355074**

Q.8 **Primary pedagogy studies on TLM availability highlight low-cost/no-cost usage in what EVS skill domain beyond science lab equipment?**

Ans
✗ 1. Advanced Lab Apparatus: Prioritizing Chemical Reactions Surpassing Household Discard Observation Protocols, Theme-Wise Quarterly.

✓ 2. Elementary science pedagogy: Utilizing household discards for observation, inference and experimentation to foster process skill development holistically.

✗ 3. Textbook diagrams : Integrating purchased models, exceeding household material inference and experimentation capabilities district-wide.

✗ 4. Commercial Science Kits:Focusing Data Analysis Silos Aligned with National Syllabus Benchmarks, Beyond Elementary Process Skills—Annually.

Question ID : **4410091564099**
Option 1 ID : **4410096177994**
Option 2 ID : **4410096177993**
Option 3 ID : **4410096177996**
Option 4 ID : **4410096177995**

Q.9 **What is the main purpose of a Social Studies textbook in education?**

Ans
✓ 1. To provide knowledge and develop understanding of society

✗ 2. To focus exclusively on mathematical and scientific concepts

✗ 3. To replace classroom teaching and learning activities entirely

✗ 4. To teach only historical facts without any connections

Question ID : **4410091551010**
Option 1 ID : **4410096126293**
Option 2 ID : **4410096126292**
Option 3 ID : **4410096126291**
Option 4 ID : **4410096126294**

QuickSarkari.com | WhatsApp Channel | Telegram: t.me/quick_sarkari

Q.10 **Which of the following is NOT a source for low-cost / no-cost learning materials?**

Ans
✔ 1. Expensive store-bought science kits
✘ 2. Recycled items like bottle caps and cartons
✘ 3. Natural items like leaves and clay
✘ 4. Household items like tools and food

Question ID : **4410091572454**
Option 1 ID : **4410096210754**
Option 2 ID : **4410096210753**
Option 3 ID : **4410096210752**
Option 4 ID : **4410096210755**

Q.11 **Which scenario best illustrates distributed leadership in school administration rather than centralized, hierarchical control?**

Ans
✔ 1. Subject heads lead curriculum teams with decision authority
✘ 2. Principal personally chairs every committee meeting
✘ 3. Administrative tasks are delegated but decisions are retained
✘ 4. All major decisions are routed only through the principal

Question ID : **4410091656828**
Option 1 ID : **4410096542239**
Option 2 ID : **4410096542240**
Option 3 ID : **4410096542237**
Option 4 ID : **4410096542238**

Q.12 **Assessing a student's ability to rationally justify complex policy decisions requires using:**

Ans
✘ 1. Criterion-referenced tests
✘ 2. Objective multiple-choice questions
✘ 3. Factual recall questions
✔ 4. Constructed-response items

Question ID : **4410091551070**
Option 1 ID : **4410096126526**
Option 2 ID : **4410096126524**
Option 3 ID : **4410096126523**
Option 4 ID : **4410096126525**

Q.13 **Choosing scrap materials over purchased Teaching–Learning Material (TLMs) for model preparation primarily analyzes the promotion of:**

Ans
✘ 1. Reduced cognitive complexity
✘ 2. Standardized content delivery
✘ 3. Enhanced material durability
✔ 4. Attitudinal commitment/ownership

Question ID : **4410091558817**
Option 1 ID : **4410096157654**
Option 2 ID : **4410096157653**
Option 3 ID : **4410096157656**
Option 4 ID : **4410096157655**

Quick Sarkari

Q.14 To align with National Curriculum Framework (NCF 2005) guidelines, a social science textbook must primarily function as a:

Ans
✗ 1. Disciplinary guideline
✗ 2. Content repository
✗ 3. Mandatory knowledge source
✓ 4. Suggestive learning resource

Question ID : **4410091551277**
Option 1 ID : **4410096127402**
Option 2 ID : **4410096127399**
Option 3 ID : **4410096127401**
Option 4 ID : **4410096127400**

Q.15 An important characteristic of school leaders in managing change is:

Ans
✗ 1. Limiting knowledge sharing to senior staff only
✗ 2. Avoiding new ideas to maintain consistency
✗ 3. Focusing solely on individual achievements
✓ 4. Fostering collaboration among all members

Question ID : **4410091579585**
Option 1 ID : **4410096239652**
Option 2 ID : **4410096239651**
Option 3 ID : **4410096239649**
Option 4 ID : **4410096239650**

Q.16 Which best shows why Social Science education matters?

Ans
✗ 1. Lab practice
✓ 2. Critical thinking
✗ 3. Recall dates
✗ 4. Neat writing

Question ID : **4410091633675**
Option 1 ID : **4410096452793**
Option 2 ID : **4410096452792**
Option 3 ID : **4410096452790**
Option 4 ID : **4410096452791**

Q.17 Which of the following is an appropriate ICT tool for teaching listening skills in English at the primary level?

Ans
✓ 1. Audio stories and rhymes
✗ 2. Blackboard explanations
✗ 3. Printed worksheets
✗ 4. Grammar rule charts

Question ID : **4410091690241**
Option 1 ID : **4410096667243**
Option 2 ID : **4410096667245**
Option 3 ID : **4410096667242**
Option 4 ID : **4410096667244**

QuickSarkari.com | WhatsApp Channel | Telegram: t.me/quick_sarkari

Q.18 **Which ICT resources help in understanding complex linguistic concepts?**

Ans
✗ 1. Email, messaging apps, and discussion forums

✓ 2. Simulations, multimedia content, and virtual labs

✗ 3. Word processors and basic typing software

✗ 4. Online dictionaries and spell-check tools only

Question ID : **4410091572465**
Option 1 ID : **4410096210794**
Option 2 ID : **4410096210795**
Option 3 ID : **4410096210792**
Option 4 ID : **4410096210793**

Q.19 **A teacher using the grammar translation method assigns students to translate a literary excerpt and identify all instances of passive voice. What dual objective is being targeted in this activity?**

Ans
✗ 1. Improving students' speaking ability and pronunciation through oral practice

✗ 2. Developing learners' ability to speak fluently and spontaneously in real-life situations

✗ 3. Encouraging understanding of cultural background and literary context of the text

✓ 4. Strengthening grammatical analysis skills while practicing accurate translation of the text

Question ID : **4410091614160**
Option 1 ID : **4410096375457**
Option 2 ID : **4410096375460**
Option 3 ID : **4410096375458**
Option 4 ID : **4410096375459**

Q.20 **According to the National Curriculum Framework (2005), what should be integrated as environmental studies at the primary level?**

Ans
✗ 1. Physical education and art

✗ 2. Languages and mathematics

✗ 3. Mathematics and art

✓ 4. Science and social science

Question ID : **4410091602445**
Option 1 ID : **4410096329357**
Option 2 ID : **4410096329356**
Option 3 ID : **4410096329354**
Option 4 ID : **4410096329355**

Section : **Discipline5**

QuickSarkari.com | WhatsApp Channel | Telegram: t.me/quick_sarkari

Q.1 **Which term refers to students who require additional support due to physical, emotional, or learning challenges?**

Ans
✗ 1. Bilingual students
✓ 2. Children with Special Needs
✗ 3. Gifted learners
✗ 4. Average achievers

Question ID : **4410091633780**
Option 1 ID : **4410096453212**
Option 2 ID : **4410096453211**
Option 3 ID : **4410096453210**
Option 4 ID : **4410096453213**

Q.2 **Science kits address the critical need in schools lacking laboratory facilities by enabling which essential pedagogical practice?**

Ans
✗ 1. Standardized testing with theoretical questions only for assessment
✗ 2. Teacher-led lectures supplemented by textbook illustrations alone
✓ 3. Hands-on experimentation without requiring permanent infrastructure
✗ 4. Group memorization sessions focused on scientific terminology recall

Question ID : **4410091564664**
Option 1 ID : **4410096180232**
Option 2 ID : **4410096180234**
Option 3 ID : **4410096180233**
Option 4 ID : **4410096180235**

Q.3 **Which of the following promotes equal opportunities for boys and girls in schools?**

Ans
✗ 1. Gender-specific textbooks only
✓ 2. Gender-sensitive teaching materials
✗ 3. Separate playgrounds for boys and girls
✗ 4. Restricting girls from certain subjects

Question ID : **4410091551159**
Option 1 ID : **4410096126884**
Option 2 ID : **4410096126885**
Option 3 ID : **4410096126886**
Option 4 ID : **4410096126883**

QuickSarkari.com | WhatsApp Channel | Telegram: t.me/quick_sarkari

Q.4 **Which of the following is an example of exclusion in Indian education?**

Ans
✔ 1. Providing support for students from diverse backgrounds
✘ 2. Admitting all children regardless of background
✘ 3. Refusing admission to children with disabilities
✘ 4. Using varied teaching methods to support all learners

Question ID : **4410091618661**
Option 1 ID : **4410096393517**
Option 2 ID : **4410096393516**
Option 3 ID : **4410096393515**
Option 4 ID : **4410096393518**

Q.5 **नगर निगम के अधिकारी नगरीय नवीकरण के लिए झुग्गीवासियों को जबरन नगर के बहिर्भाग में पुनर्स्थापित कर देते हैं। इसका उनके बच्चों पर अधिकतम अनुदेशात्मक प्रभाव यह पड़ता है कि वे _____ से वंचित हो जाते हैं।**

Ans
✘ 1. अनौपचारिक रोजगार के अवसर
✘ 2. पर्याप्त आवासन सुविधाओं
✔ 3. गुणवत्तापूर्ण शैक्षिक संसाधन
✘ 4. केंद्रीय व्यवसाय ज़िले

Question ID : **4410091560084**
Option 1 ID : **4410096162461**
Option 2 ID : **4410096162458**
Option 3 ID : **4410096162460**
Option 4 ID : **4410096162459**

Q.6 **How does 'prejudiced mentality/premature evaluation' act as a barrier to listening?**

Ans
✘ 1. Speaker uses simple language
✔ 2. Listener judges message before hearing it fully
✘ 3. Listener improves understanding
✘ 4. Speaker changes the topic suddenly

Question ID : **4410091608820**
Option 1 ID : **4410096354203**
Option 2 ID : **4410096354200**
Option 3 ID : **4410096354202**
Option 4 ID : **4410096354201**

Q.7 **What is a key feature of recreational mathematics problems?**

Ans
✘ 1. They always involve number theory
✔ 2. They are easy to ask but difficult to answer
✘ 3. They require advanced mathematical training
✘ 4. They have immediately obvious solutions

Question ID : **4410091633950**
Option 1 ID : **4410096453892**
Option 2 ID : **4410096453891**
Option 3 ID : **4410096453890**
Option 4 ID : **4410096453893**

Q.8 **A teacher wants to promote inclusive education by addressing gender bias in classroom discussions. Which strategy would be most effective?**

Ans
✗ 1. Directing questions only to high-achieving students
✓ 2. Encouraging equal participation from all genders in debates
✗ 3. Allowing students to opt out of discussions
✗ 4. Focusing on topics unrelated to gender

Question ID : **4410091640499**
Option 1 ID : **4410096479195**
Option 2 ID : **4410096479196**
Option 3 ID : **4410096479198**
Option 4 ID : **4410096479197**

Q.9 **How do science clubs and eco-club activities contribute to popularizing science in schools?**

Ans
✗ 1. They prioritize individual work over teamwork
✗ 2. They focus solely on exam preparation
✗ 3. They exclude environmental awareness
✓ 4. They promote engagement through projects

Question ID : **4410091638999**
Option 1 ID : **4410096473562**
Option 2 ID : **4410096473563**
Option 3 ID : **4410096473564**
Option 4 ID : **4410096473561**

Q.10 **Which aspect often reproduces gender roles in schools?**

Ans
✗ 1. School uniforms
✓ 2. Classroom processes
✗ 3. Morning assemblies
✗ 4. Playgrounds

Question ID : **4410091635750**
Option 1 ID : **4410096460990**
Option 2 ID : **4410096460988**
Option 3 ID : **4410096460989**
Option 4 ID : **4410096460987**

Q.11 **How does language function as a source of exclusion in schooling?**

Ans
✗ 1. When teachers encourage classroom dialogue in multiple languages
✓ 2. When instruction ignores students' home languages and linguistic backgrounds
✗ 3. When textbooks include multilingual glossaries and examples
✗ 4. When schools adopt flexible language support programmes

Question ID : **4410091603470**
Option 1 ID : **4410096333078**
Option 2 ID : **4410096333076**
Option 3 ID : **4410096333077**
Option 4 ID : **4410096333079**

QuickSarkari.com | WhatsApp Channel | Telegram: t.me/quick_sarkari

Q.12 **Which of the following is not a major activity in a science fair or exhibition?**

Ans
✗ 1. Group discussions, seminars and workshops
✓ 2. Musical performance shows organized in school
✗ 3. Debates, Declamation and paper reading contests
✗ 4. Science quiz competitions conducted for students

Question ID : **4410091548341**
Option 1 ID : **4410096116073**
Option 2 ID : **4410096116076**
Option 3 ID : **4410096116075**
Option 4 ID : **4410096116074**

Q.13 **The constructivist approach in mathematics emphasizes:**

Ans
✗ 1. Memorizing rules and procedures without understanding
✓ 2. Building understanding through inquiry
✗ 3. Avoiding real-life applications
✗ 4. Teachers providing all answers and procedures

Question ID : **4410091553710**
Option 1 ID : **4410096137513**
Option 2 ID : **4410096137512**
Option 3 ID : **4410096137514**
Option 4 ID : **4410096137511**

Q.14 **During the final week of a language unit, a teacher administers a cloze procedure and collects students' audio-taped presentations to evaluate their overall proficiency in LSRW skills. What is the main purpose of these activities?**

Ans
✗ 1. Providing ongoing feedback for improvement
✗ 2. Encouraging collaborative learning
✓ 3. Measuring achievement against objectives
✗ 4. Identifying individual learning difficulties

Question ID : **4410091618921**
Option 1 ID : **4410096394557**
Option 2 ID : **4410096394559**
Option 3 ID : **4410096394556**
Option 4 ID : **4410096394558**

Q.15 **Which of the following best describes deductive reasoning in science education?**

Ans
✗ 1. Observing results without drawing any conclusions
✗ 2. Starting with specific observations to form a general principle
✗ 3. Guessing the outcome based on past experience
✓ 4. Starting with a general principle and applying it to specific cases

Question ID : **4410091618564**
Option 1 ID : **4410096393130**
Option 2 ID : **4410096393128**
Option 3 ID : **4410096393129**
Option 4 ID : **4410096393127**

QuickSarkari.com | WhatsApp Channel | Telegram: t.me/quick_sarkari

Q.16 **Which of the following is incorrect according to Culturally Responsive Classroom Management?**

Ans
✗ 1. It encourages respectful communication across differences
✗ 2. It values students' cultural identities in classroom practices
✓ 3. It assumes one fixed behaviour model fits all learners
✗ 4. It promotes inclusive routines for diverse backgrounds

Question ID : **4410091548382**
Option 1 ID : **4410096116234**
Option 2 ID : **4410096116233**
Option 3 ID : **4410096116232**
Option 4 ID : **4410096116235**

Q.17 **A teacher assigns students a project to create models of objects demonstrating symmetry, integrating art with mathematics. Which importance of mathematics in education does this highlight?**

Ans
✓ 1. Interdisciplinary foundation
✗ 2. Strict procedural practice
✗ 3. Singular focus on numbers
✗ 4. Exclusive logical reasoning

Question ID : **4410091609116**
Option 1 ID : **4410096355380**
Option 2 ID : **4410096355382**
Option 3 ID : **4410096355383**
Option 4 ID : **4410096355381**

Q.18 **Which of the following options best explains the role of patterns in learning mathematics?**

Ans
✓ 1. Pattern-based thinking helps children discover mathematical facts.
✗ 2. Pattern recognition is unrelated to mathematical problem-solving.
✗ 3. Patterns are useful only at higher levels of mathematics.
✗ 4. Patterns help children memorize rules without understanding.

Question ID : **4410091581902**
Option 1 ID : **4410096248846**
Option 2 ID : **4410096248848**
Option 3 ID : **4410096248847**
Option 4 ID : **4410096248845**

QuickSarkari.com | WhatsApp Channel | Telegram: t.me/quick_sarkari

Q.19 **A teacher designs an English lesson where students express their feelings about a poem and show appreciation for others' opinions. This learning outcome mainly belongs to which domain of Bloom's objectives?**

Ans
- ✔ 1. Affective domain
- ✘ 2. Cognitive domain
- ✘ 3. Linguistic domain
- ✘ 4. Psychomotor domain

Question ID : **4410091690782**
Option 1 ID : **4410096669301**
Option 2 ID : **4410096669300**
Option 3 ID : **4410096669303**
Option 4 ID : **4410096669302**

Q.20 **Which of the following best describes Bloom's Taxonomy of Educational Objectives?**

Ans
- ✘ 1. A non-systematic list of instructional activities without hierarchy
- ✘ 2. A single-dimensional classification focusing only on knowledge and memory
- ✔ 3. A three-dimensional classification into Cognitive, Affective, and Psychomotor domains
- ✘ 4. A system that classifies learning objectives only on the basis of emotions and attitudes

Question ID : **4410091581662**
Option 1 ID : **4410096247878**
Option 2 ID : **4410096247875**
Option 3 ID : **4410096247876**
Option 4 ID : **4410096247877**

"

QuickSarkari.com | WhatsApp Channel | Telegram: t.me/quick_sarkari

Quick Sarkari

Thank you for studying with QuickSarkari!

Get the latest Sarkari Naukri notifications, admit cards, results, answer keys and free previous-year papers first - follow us on WhatsApp and Telegram.

Visit www.quicksarkari.com

Join our WhatsApp Channel

https://whatsapp.com/channel/0029VaxxbrREquiPoXTWM229

Join our Telegram Channel

https://t.me/quick_sarkari

Share this PDF with your friends preparing for DSSSB exams.