Quick Sarkari

DSSSB PREVIOUS YEAR PAPER WITH ANSWER KEY

DSSSB Assistant Teacher (Primary) – PRT

19 February 2026 · Shift 1

डीएसएसएसबी सहायक अध्यापक (प्राथमिक) – PRT – 19 फरवरी 2026, शिफ्ट 1 का प्रश्न पत्र, उत्तर कुंजी सहित

200	120 min	1 / −0.25	EN + HI
Questions / प्रश्न	Duration / समय	Marks per Q / अंक	Language / भाषा

Sections: General Intelligence and Reasoning Ability, General Awareness, Arithmetical and Numerical Ability, English Language and Comprehension, Hindi Language and Comprehension, Assistant Teacher (Primary) – PRT

INSIDE THIS PDF / इस PDF में

Question Paper in English + Hindi with Answer Key (correct option marked in green) + answer table — Page 2–47
प्रश्न पत्र अंग्रेज़ी + हिंदी में, उत्तर कुंजी सहित (सही विकल्प हरे रंग में) + उत्तर तालिका

Official DSSSB Response Sheet with Answer Key (correct option ticked in green) — Page 48–120
आधिकारिक DSSSB रिस्पॉन्स शीट, उत्तर कुंजी सहित (सही विकल्प हरे टिक से)

HOW TO USE THIS PAPER / इस पेपर का उपयोग कैसे करें

1. Attempt the paper first as a timed online mock test (link below).
   पहले नीचे दिए लिंक से इसे टाइमर के साथ ऑनलाइन मॉक टेस्ट के रूप में हल करें।
2. Check your score, section-wise analysis and solutions online.
   ऑनलाइन अपना स्कोर, खंड-वार विश्लेषण और हल देखें।
3. Use this PDF for revision. Correct answers are shown in green.
   दोहराने के लिए इस PDF का उपयोग करें। सही उत्तर हरे रंग में दिए गए हैं।

Attempt this paper as a FREE online mock test

इस पेपर को फ्री ऑनलाइन मॉक टेस्ट के रूप में हल करें – टाइमर, स्कोर और हल के साथ

https://quicksarkari.com/dsssb-assistant-teacher-primary-19-february-2026-shift-1-mock-test/

All DSSSB Assistant Teacher (Primary) – PRT papers and mock tests: **quicksarkari.com/dsssb-mock-test/#assistant-teacher-primary**

Join WhatsApp Channel | Join Telegram Channel

DSSSB Assistant Teacher (Primary) – PRT – Question Paper (English + Hindi)

DSSSB सहायक अध्यापक (प्राथमिक) – PRT – प्रश्न पत्र (अंग्रेज़ी + हिंदी)

Exam held on 19 February 2026, Shift 1 · 200 questions · correct answers marked ✔ in green
परीक्षा तिथि 19 फरवरी 2026, शिफ्ट 1 · 200 प्रश्न · सही उत्तर हरे रंग में ✔ से चिह्नित

> The official paper for this shift was in English. The Hindi version of each question is a translation prepared by QuickSarkari; the language-section questions are shown as asked.
> इस शिफ्ट का आधिकारिक प्रश्न पत्र अंग्रेज़ी में था। प्रत्येक प्रश्न का हिंदी संस्करण QuickSarkari द्वारा तैयार किया गया अनुवाद है; भाषा खंड के प्रश्न मूल रूप में दिए गए हैं।

General Intelligence and Reasoning Ability

Q.1 Refer to the following letter series and answer the question. (Counting to be done from left to right only)
(Left) F W N V N F A S A C P A H H W X J J Z (Right)
How many such vowels are there each of which is immediately preceded by a consonant and also immediately followed by a consonant?
निम्नलिखित अक्षर श्रृंखला को देखें और प्रश्न का उत्तर दें। (गणना केवल बाएँ से दाएँ की जानी है)
(बाएँ) F W N V N F A S A C P A H H W X J J Z (दाएँ)
ऐसे कितने स्वर हैं, जिनमें से प्रत्येक के ठीक पहले एक व्यंजन है और ठीक बाद भी एक व्यंजन है?

(1) 1
(2) 2
(3) 3 ✔
(4) 4

Q.2 Seven boxes, F, I, L, T, E, R and S, are kept one over the other but not necessarily in the same order. Only S is kept above I. Only F is kept between I and E. Only L is kept below T.
How many boxes are kept between R and L?
सात बक्से, F, I, L, T, E, R और S, एक के ऊपर एक रखे गए हैं, परंतु जरूरी नहीं कि इसी क्रम में हों। केवल S, I के ऊपर रखा है। केवल F, I और E के बीच में रखा है। केवल L, T के नीचे रखा है।
R और L के बीच कितने बक्से रखे हैं?

(1) One / एक ✔
(2) Four / चार
(3) Three / तीन
(4) Two / दो

Q.3 Select the option figure in which the given figure (X) is embedded as its part (rotation is NOT allowed).

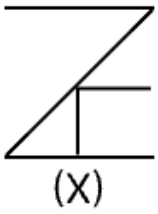

उस विकल्प आकृति का चयन करें जिसमें दी गई आकृति (X) उसके भाग के रूप में निहित है (घुमाने की अनुमति नहीं है)।

(1) 

(2) 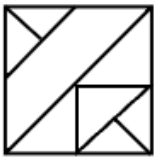 ✔

(3) 

(4) 

Q.4 Faisal ranked 22nd from the top and 20th from the bottom in his class. How many students are there in his class?

फैसल अपनी कक्षा में ऊपर से 22वें और नीचे से 20वें स्थान पर है। उसकी कक्षा में कितने विद्यार्थी हैं?

(1) 40

(2) 39

(3) 38

(4) 41 ✔

Q.5 In a row of people all facing north, Piyush is 11th from the right end. Krishna is 20th from the right end. Krishna is exactly between Piyush and Jackie. If Jackie is 4th from the left end of the line, how many people are there in the row?

उत्तर की ओर मुख करके खड़े लोगों की एक पंक्ति में, पीयूष दाएँ छोर से 11वें स्थान पर है। कृष्णा दाएँ छोर से 20वें स्थान पर है। कृष्णा, पीयूष और जैकी के ठीक बीच में है। यदि जैकी पंक्ति के बाएँ छोर से 4थे स्थान पर है, तो पंक्ति में कितने लोग हैं?

(1) 30

(2) 33

(3) 31

(4) 32 ✔

QuickSarkari.com | WhatsApp Channel | Telegram: t.me/quick_sarkari

Q.6 If 'A' stands for '÷' , 'B' stands for 'x', 'C' stands for '+' and 'D' stands for '-', what will come in place of question mark '?' in the following equation?
15 B 3 D 6 A 3 C 7 = ?

यदि 'A' का अर्थ '÷' है, 'B' का अर्थ 'x' है, 'C' का अर्थ '+' है और 'D' का अर्थ '-' है, तो निम्नलिखित समीकरण में प्रश्न चिह्न '?' के स्थान पर क्या आएगा?
15 B 3 D 6 A 3 C 7 = ?

(1) 50 ✔
(2) 60
(3) 55
(4) 45

Q.7 Select the correct mirror image of the given combination when the mirror is placed at PQ as shown below.

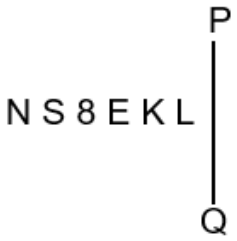

जब दर्पण को नीचे दर्शाए अनुसार PQ पर रखा जाता है, तो दिए गए संयोजन के सही दर्पण प्रतिबिंब का चयन करें।

(1) ⅃ Ж 8 Ǝ Ƨ И
(2) И Ƨ 8 E K Γ
(3) ⅂ Ж Ǝ 8 S N
(4) ⅃ Ж Ǝ 8 Ƨ И ✔

Q.8 Based on the English alphabetical order, three of the following four are alike in a certain way and thus form a group. Which is the one that does not belong to that group?
(Note: The odd one out is not based on the number of consonants/vowels or their position in the letter cluster)

अंग्रेजी वर्णमाला क्रम के आधार पर, निम्नलिखित चार में से तीन किसी निश्चित प्रकार से एकसमान हैं और इस प्रकार एक समूह बनाते हैं। वह कौन-सा है जो उस समूह से संबंधित नहीं है?
(ध्यान दें: असंगत अक्षर-समूह, उस अक्षर-समूह में व्यंजनों/स्वरों की संख्या या उनके स्थान पर आधारित नहीं है)

(1) EGJ
(2) LNQ
(3) QST ✔
(4) TVY

Q.9 Based on the English alphabetical order, three of the following four letter-cluster pairs are alike in a certain way and thus form a group. Which is the one that does not belong to that group?
(Note: The odd one out is not based on the number of consonants/vowels or their position in the letter-cluster.)
अंग्रेजी वर्णमाला क्रम के आधार पर, निम्नलिखित चार अक्षर-समूह युग्मों में से तीन किसी निश्चित प्रकार से एकसमान हैं और इस प्रकार एक समूह बनाते हैं। वह कौन-सा है जो उस समूह से संबंधित नहीं है?
(ध्यान दें: असंगत युग्म, अक्षर-समूह में व्यंजनों/स्वरों की संख्या या उनके स्थान पर आधारित नहीं है।)

(1) RK - LE
(2) UN - OH
(3) OH - IB
(4) QJ - LP ✔

Q.10 What should come in place of '?' in the given series?
4 ? 32 95 284 851
दी गई श्रृंखला में '?' के स्थान पर क्या आना चाहिए?
4 ? 32 95 284 851

(1) 8
(2) 19
(3) 24
(4) 11 ✔

Q.11 Below are given two sets of numbers. In each set of numbers, a certain mathematical operation on the first number results in the second number. Similarly, certain mathematical operation on the second number results in the third number and so on. Which of the given options follows the same set of operations as in the question?
(NOTE – A two/three-digit number cannot be broken into individual digits for operations e.g. if 37 is followed by 10, the operation cannot be 3+7 as a two-digit number cannot be broken into individual digits)
21 - 29 - 232 - 225 18 - 26 - 208 - 201
नीचे संख्याओं के दो समुच्चय दिए गए हैं। संख्याओं के प्रत्येक समुच्चय में, पहली संख्या पर एक निश्चित गणितीय संक्रिया करने पर दूसरी संख्या प्राप्त होती है। इसी प्रकार, दूसरी संख्या पर एक निश्चित गणितीय संक्रिया करने पर तीसरी संख्या प्राप्त होती है और इसी तरह आगे भी।
दिए गए विकल्पों में से कौन-सा विकल्प प्रश्न में दी गई संक्रियाओं के समान समुच्चय का अनुसरण करता है?
(ध्यान दें – संक्रियाएँ करने के लिए दो/तीन अंकों की संख्या को अलग-अलग अंकों में नहीं तोड़ा जा सकता है, उदाहरण के लिए यदि 37 के बाद 10 आता है, तो संक्रिया 3+7 नहीं हो सकती है, क्योंकि दो अंकों की संख्या को अलग-अलग अंकों में नहीं तोड़ा जा सकता है)
21 - 29 - 232 - 225 18 - 26 - 208 - 201

(1) 17 - 25 - 250 - 244
(2) 46 - 53 - 371 - 364
(3) 39 - 47 - 376 - 369 ✔
(4) 26 - 35 - 280 - 274

Q.12 Refer to the following letter, symbol series and answer the question. Counting to be done from left to right only.
(Left) £ B % K H & @ & J © J € O X $ N $ J @ & P O (Right)
How many such letters are there each of which is immediately preceded by a letter and also immediately followed by a symbol?
निम्नलिखित अक्षर, प्रतीक श्रृंखला को देखें और प्रश्न का उत्तर दें। गणना केवल बाएँ से दाएँ की जानी है।
(बाएँ) £ B % K H & @ & J © J € O X $ N $ J @ & P O (दाएँ)
ऐसे कितने अक्षर हैं, जिनमें से प्रत्येक के ठीक पहले एक अक्षर है और ठीक बाद एक प्रतीक है?

(1) 4
(2) 1
(3) 3
(4) 2 ✔

Q.13 This question is based on the five, three-digit numbers given below.
(Left) 287 846 241 726 468 (Right)
(Example: 697 – First digit = 6, second digit = 9 and third digit = 7)
(NOTE : All operations to be done from left to right.)
What will be the resultant if the second digit of the second-highest number is multiplied by the second digit of the third-lowest number?
यह प्रश्न नीचे दी गई तीन अंकों वाली पाँच संख्याओं पर आधारित है।
(बाएँ) 287 846 241 726 468 (दाएँ)
(उदाहरण: 697 – पहला अंक = 6, दूसरा अंक = 9 और तीसरा अंक = 7)
(ध्यान दें : सभी संक्रियाएँ बाएँ से दाएँ की जानी हैं।)
यदि दूसरी सबसे बड़ी संख्या के दूसरे अंक को तीसरी सबसे छोटी संख्या के दूसरे अंक से गुणा किया जाए, तो परिणाम क्या होगा?

(1) 21
(2) 12 ✔
(3) 22
(4) 10

Q.14 In a certain code language, 'HARM' is coded as '4871' and 'RAMP' is coded as '8137'. What is the code for 'P' in the given code language?
एक निश्चित कूट भाषा में, 'HARM' को '4871' के रूप में कूटबद्ध किया जाता है और 'RAMP' को '8137' के रूप में कूटबद्ध किया जाता है।
दी गई कूट भाषा में 'P' के लिए कूट क्या है?

(1) 3 ✔
(2) 1
(3) 4
(4) 8

Q.15 Each vowel in the word AWAITING is changed to the letter immediately following it in the English alphabetical order and each consonant is changed to the letter immediately preceding it in the English alphabetical order. How many letters will appear exactly twice in the new group of letters thus formed?
शब्द AWAITING के प्रत्येक स्वर को अंग्रेजी वर्णमाला क्रम में उसके ठीक बाद वाले अक्षर से बदल दिया जाता है और प्रत्येक व्यंजन को अंग्रेजी वर्णमाला क्रम में उसके ठीक पहले वाले अक्षर से बदल दिया जाता है। इस प्रकार बने अक्षरों के नए समूह में कितने अक्षर ठीक दो बार आएँगे?

(1) Three / तीन
(2) Two / दो ✔
(3) Four / चार
(4) One / एक

Q.16 S is the brother of A. A is the father of Y. B is the father of W. W is the son of Y. How is S related to W?

S, A का भाई है। A, Y का पिता है। B, W का पिता है। W, Y का पुत्र है। S का W से क्या संबंध है?

(1) Mother's father's father / माँ के पिता के पिता

(2) **Mother's father's brother / माँ के पिता के भाई ✔**

(3) Mother's father / माँ के पिता

(4) Mother's brother / माँ के भाई

Q.17 HIKH is related to LMOL in a certain way based on the English alphabetical order. In the same way, DEGD is related to HIKH. To which of the following is ABDA related, following the same logic?

अंग्रेजी वर्णमाला क्रम के आधार पर HIKH एक निश्चित प्रकार से LMOL से संबंधित है। उसी प्रकार, DEGD, HIKH से संबंधित है। समान तर्क का अनुसरण करते हुए, ABDA निम्नलिखित में से किससे संबंधित है?

(1) **EFHE ✔**

(2) EEGE

(3) EFGE

(4) EGGO

Q.18 Which of the following letter-number clusters will replace the question mark (?) in the given series to make it logically complete?

GHJ51 , JKM67 , MNP83 , PQS99 , ?

निम्नलिखित में से कौन-सा अक्षर-संख्या समूह दी गई श्रृंखला में प्रश्न चिह्न (?) के स्थान पर आकर उसे तार्किक रूप से पूर्ण करेगा?

GHJ51 , JKM67 , MNP83 , PQS99 , ?

(1) KTV115

(2) **STV115 ✔**

(3) STU115

(4) SIV115

Q.19 Each of the digits in the number 46812597 is arranged in ascending order from left to right. What will be the sum of the digits which are third from the left and fourth from the right in the number thus formed?

संख्या 46812597 के प्रत्येक अंक को बाएँ से दाएँ आरोही क्रम में व्यवस्थित किया जाता है। इस प्रकार बनी संख्या में बाएँ से तीसरे और दाएँ से चौथे अंकों का योग क्या होगा?

(1) 11

(2) 12

(3) 13

(4) **10 ✔**

Q.20 Seven people, R, O, A, M, I, N and G, are sitting in a row, facing north. Only two people sit to the left of N. Only three people sit between N and A. Only one person sits between A and R. O sits to the immediate left of I. G is not an immediate neighbor of
A. How many people sit to the right of M?

सात व्यक्ति, R, O, A, M, I, N और G, उत्तर की ओर मुख करके एक पंक्ति में बैठे हैं। N के बाईं ओर केवल दो व्यक्ति बैठे हैं। N और A के बीच केवल तीन व्यक्ति बैठे हैं। A और R के बीच केवल एक व्यक्ति बैठा है। O, I के ठीक बाईं ओर बैठा है। G का निकटतम पड़ोसी A नहीं है। M के दाईं ओर कितने व्यक्ति बैठे हैं?

(1) Two / दो

(2) Three / तीन

(3) Four / चार

(4) **One / एक ✔**

General Awareness

Q.21 Which of the following CORRECTLY illustrates the long-term constitutional consequence of the Kesavananda Bharati judgment in the context of parliamentary attempts at asserting supremacy?
संसद द्वारा सर्वोच्चता स्थापित करने के प्रयासों के संदर्भ में, निम्नलिखित में से कौन-सा केशवानंद भारती निर्णय के दीर्घकालिक संवैधानिक परिणाम को सही ढंग से दर्शाता है?

(1) The constitutional review exercise post-1980 successfully removed all restrictions on amending fundamental rights / 1980 के बाद की संवैधानिक समीक्षा प्रक्रिया ने मौलिक अधिकारों में संशोधन पर लगे सभी प्रतिबंधों को सफलतापूर्वक हटा दिया

(2) The 42nd Amendment annulled the basic structure doctrine, making Parliament sovereign in all constitutional matters. / 42वें संशोधन ने मूल ढाँचे के सिद्धांत को निरस्त कर दिया, जिससे संसद सभी संवैधानिक मामलों में संप्रभु हो गई।

(3) Despite the 42nd Amendment, the Supreme Court in Minerva Mills reaffirmed the basic structure doctrine, limiting constitutional amendments. / 42वें संशोधन के बावजूद, सर्वोच्च न्यायालय ने मिनर्वा मिल्स मामले में मूल ढाँचे के सिद्धांत की पुनः पुष्टि की, जिससे संवैधानिक संशोधन सीमित हो गए। ✔

(4) The Minerva Mills judgment overturned Kesavananda and declared the Preamble non- justiciable. / मिनर्वा मिल्स निर्णय ने केशवानंद निर्णय को पलट दिया और प्रस्तावना को गैर-न्यायोचित घोषित कर दिया।

Q.22 The Governor of a State shall be appointed by the _____ by warrant under his hand and seal.
किसी राज्य के राज्यपाल की नियुक्ति _____ द्वारा अपने हस्ताक्षर और मुद्रा सहित अधिपत्र द्वारा की जाएगी।

(1) Prime Minister of India / भारत के प्रधानमंत्री

(2) Chief Justice of India / भारत के मुख्य न्यायाधीश

(3) Respective State's Chief Minister / संबंधित राज्य के मुख्यमंत्री

(4) President of India / भारत के राष्ट्रपति ✔

Q.23 Which nation served as the host for COP30 Climate Summit in 2025?
2025 में COP30 जलवायु शिखर सम्मेलन की मेजबानी किस देश ने की?

(1) Germany / जर्मनी

(2) India / भारत

(3) Brazil / ब्राज़ील ✔

(4) Canada / कनाडा

Q.24 The Great Indian Plains were primarily formed by which geological process?
विशाल भारतीय मैदान मुख्य रूप से किस भूवैज्ञानिक प्रक्रिया द्वारा निर्मित हुए थे?

(1) Glacial erosion / हिमनदीय अपरदन

(2) Volcanic eruption / ज्वालामुखी विस्फोट

(3) Sediment deposition / अवसाद निक्षेपण ✔

(4) Tectonic uplift / विवर्तनिक उत्थान

Q.25 Article 359A of the Indian constitution is related to which of the following states?
भारतीय संविधान का अनुच्छेद 359A निम्नलिखित में से किस राज्य से संबंधित है?

(1) Meghalaya / मेघालय

(2) Punjab / पंजाब ✔

(3) Jammu & Kashmir / जम्मू और कश्मीर

(4) Assam / असम

Q.26 Which AI tool was launched in November 2025 by Indian researchers to analyze cancer?
नवंबर 2025 में भारतीय शोधकर्ताओं द्वारा कैंसर का विश्लेषण करने के लिए कौन-सा AI उपकरण लॉन्च किया गया?

(1) MedAI
(2) GeneTrack
(3) **OncoMark ✔**
(4) BioScan

Q.27 Which monument, built by Shah Jahan in memory of his wife Mumtaz Mahal, is a UNESCO World Heritage Site?
शाहजहाँ द्वारा अपनी पत्नी मुमताज़ महल की याद में बनवाया गया कौन-सा स्मारक यूनेस्को विश्व धरोहर स्थल है?

(1) Red Fort / लाल किला
(2) **Taj Mahal / ताजमहल ✔**
(3) Qutub Minar / कुतुब मीनार
(4) Humayun's Tomb / हुमायूँ का मकबरा

Q.28 What was the initial aim of the Indian National Congress when it was founded in 1885?
1885 में भारतीय राष्ट्रीय कांग्रेस की स्थापना के समय उसका प्रारंभिक उद्देश्य क्या था?

(1) Religious unity / धार्मिक एकता
(2) **Full independence / पूर्ण स्वतंत्रता ✔**
(3) Armed rebellion / सशस्त्र विद्रोह
(4) Limited reforms / सीमित सुधार

Q.29 The missile tested by DRDO & Indian Navy on 27th February, 2025, from Chandipur was:
DRDO और भारतीय नौसेना द्वारा 27 फरवरी, 2025 को चांदीपुर से परीक्षण की गई मिसाइल थी:

(1) **NASM-SR naval anti-ship missile / NASM-SR नौसैनिक जहाज-रोधी मिसाइल ✔**
(2) BrahMos II / ब्रह्मोस II
(3) Pralay tactical missile / प्रलय सामरिक मिसाइल
(4) Agni-P / अग्नि-P

Q.30 What does BPO commonly refer to?
BPO का सामान्यतः क्या अर्थ होता है?

(1) **Business Process Outsourcing / बिज़नेस प्रोसेस आउटसोर्सिंग (Business Process Outsourcing) ✔**
(2) Banking Process Order / बैंकिंग प्रोसेस ऑर्डर (Banking Process Order)
(3) Basic Product Outsourcing / बेसिक प्रोडक्ट आउटसोर्सिंग (Basic Product Outsourcing)
(4) Business Private Operations / बिज़नेस प्राइवेट ऑपरेशंस (Business Private Operations)

Q.31 Which of the following best describes the EOS-05 mission by ISRO?
निम्नलिखित में से कौन-सा ISRO के EOS-05 मिशन का सबसे अच्छा वर्णन करता है?

(1) **An Earth observation satellite for environmental monitoring. / पर्यावरण निगरानी के लिए एक पृथ्वी अवलोकन उपग्रह। ✔**
(2) A deep space exploration mission targeting Mars. / मंगल ग्रह को लक्षित एक गहन अंतरिक्ष अन्वेषण मिशन।
(3) A communication satellite for global connectivity. / वैश्विक संपर्क के लिए एक संचार उपग्रह।
(4) A satellite designed for space docking experiments. / अंतरिक्ष डॉकिंग प्रयोगों के लिए अभिकल्पित एक उपग्रह।

Q.32 Which of the following is NOT a key area of urban development under the Atal Mission for Rejuvenation and Urban Transformation (AMRUT)?

निम्नलिखित में से कौन-सा अटल नवीकरण और शहरी परिवर्तन मिशन (AMRUT) के अंतर्गत शहरी विकास का एक प्रमुख क्षेत्र नहीं है?

(1) Non-Motorised Urban Transport / गैर-मोटर चालित शहरी परिवहन

(2) **Promotion of transshipment hubs / ट्रांसशिपमेंट हब को बढ़ावा देना ✔**

(3) Sewerage and septage management / सीवरेज और सेप्टेज प्रबंधन

(4) Green spaces and parks / हरित स्थल और पार्क

Q.33 In April 2025, Klaus Schwab resigned as Chairman of the World Economic Forum after how many years of service in the Geneva-based institution?

अप्रैल 2025 में, क्लॉस श्वाब ने जिनेवा स्थित संस्था में कितने वर्षों की सेवा के बाद विश्व आर्थिक मंच के अध्यक्ष पद से इस्तीफा दे दिया?

(1) 43

(2) 59

(3) 36

(4) **55 ✔**

Q.34 The 'Dumhal' dance is performed by which tribe in Jammu and Kashmir?

जम्मू और कश्मीर में 'दुमहाल' नृत्य किस जनजाति द्वारा किया जाता है?

(1) Gujjar / गुज्जर

(2) Bhil / भील

(3) **Wattal / वट्टल ✔**

(4) Bakarwal / बकरवाल

Q.35 Which of the following is a key feature of the tertiary sector in advanced economies?

उन्नत अर्थव्यवस्थाओं में तृतीयक क्षेत्र की एक प्रमुख विशेषता निम्नलिखित में से कौन-सी है?

(1) Overproduction of manufactured goods for export / निर्यात के लिए विनिर्मित वस्तुओं का अति-उत्पादन

(2) Reliance on large-scale primary industries / बड़े पैमाने के प्राथमिक उद्योगों पर निर्भरता

(3) **Growth of highly specialized and knowledge-based services / अत्यधिक विशिष्ट और ज्ञान-आधारित सेवाओं का विकास ✔**

(4) Dominance of low-skilled labor / अल्प-कुशल श्रम का प्रभुत्व

Q.36 Who among the following led the anti-partition movement under the moderates?

निम्नलिखित में से किसने नरमपंथियों के अधीन विभाजन-विरोधी आंदोलन का नेतृत्व किया?

(1) Bhagat Singh / भगत सिंह

(2) **Surendranath Banerjee / सुरेंद्रनाथ बनर्जी ✔**

(3) Jawaharlal Nehru / जवाहरलाल नेहरू

(4) Mahatma Gandhi / महात्मा गांधी

Q.37 When did the ruler of Iran, Nadir Shah, sacked and plundered the city of Delhi and took away immense amounts of wealth?

ईरान के शासक नादिर शाह ने कब दिल्ली शहर को लूटा और तबाह किया तथा अपार धन-संपदा ले गया?

(1) 1839 AD / 1839 ई.

(2) 1639 AD / 1639 ई.

(3) **1739 AD / 1739 ई. ✔**

(4) 1539 AD / 1539 ई.

Q.38 Which natural substance is used to produce litmus?

लिटमस बनाने के लिए किस प्राकृतिक पदार्थ का उपयोग किया जाता है?

(1) Algae / शैवाल

(2) Bacteria / जीवाणु

(3) Fungi / कवक

(4) Lichens / लाइकेन ✔

Q.39 The last amino acid in a protein sequence is called the _____.

किसी प्रोटीन अनुक्रम में अंतिम अमीनो अम्ल को _____ कहा जाता है।

(1) N-terminal / N-टर्मिनल

(2) Beta-end / बीटा-एंड

(3) C-terminal / C-टर्मिनल ✔

(4) Omega group / ओमेगा समूह

Q.40 What was the expected outcome of the trade and investment policy reforms of 1991?

1991 के व्यापार और निवेश नीति सुधारों का अपेक्षित परिणाम क्या था?

(1) Increased adoption of modern technologies / आधुनिक प्रौद्योगिकियों को अधिक अपनाना ✔

(2) Reduced efficiency of local industries / स्थानीय उद्योगों की दक्षता में कमी

(3) Decreased foreign investment / विदेशी निवेश में कमी

(4) Increased trade barriers / व्यापार बाधाओं में वृद्धि

Arithmetical and Numerical Ability

Q.41 A shopkeeper offers two successive discounts of 15% and 20% on an article marked at ₹4,000. What is the final selling price?

एक दुकानदार ₹4,000 अंकित मूल्य वाली एक वस्तु पर 15% और 20% की दो क्रमिक छूट देता है। अंतिम विक्रय मूल्य क्या है?

(1) ₹3,200

(2) ₹2,720 ✔

(3) ₹2,600

(4) ₹2,880

Q.42 The average runs scored by a batsman in 21 matches is 40 runs. In the next 15 matches, the batsman scored an average of 13 runs. Find his average (in runs, rounded off to two decimals) in all the 36 matches.

एक बल्लेबाज द्वारा 21 मैचों में बनाए गए औसत रन 40 हैं। अगले 15 मैचों में, बल्लेबाज ने 13 रन का औसत बनाया। सभी 36 मैचों में उसका औसत (रन में, दो दशमलव स्थानों तक पूर्णांकित) ज्ञात कीजिए।

(1) 30.75

(2) 28.75 ✔

(3) 27.75

(4) 29.75

Q.43 During the first year the population of a village increased by 8% and in the second year it diminished by 8%. At the end of the second year, its population was 34776. What was the population at the beginning of the first year?

पहले वर्ष में एक गाँव की जनसंख्या में 8% की वृद्धि हुई और दूसरे वर्ष में इसमें 8% की कमी हुई। दूसरे वर्ष के अंत में, इसकी जनसंख्या 34776 थी। पहले वर्ष की शुरुआत में जनसंख्या कितनी थी?

(1) 34200
(2) 34000
(3) 34900
(4) 35000 ✔

Q.44 The diameter of a metallic sphere is 6 cm. It is melted and drawn into a wire with a cross-sectional diameter of 0.2 cm. Find the length (in metres) of the wire.

एक धात्विक गोले का व्यास 6 cm है। इसे पिघलाकर 0.2 cm अनुप्रस्थ-काट व्यास वाले एक तार के रूप में खींचा जाता है। तार की लंबाई (मीटर में) ज्ञात कीजिए।

(1) 0.36
(2) 36 ✔
(3) 3.6
(4) 360

Q.45 In what ratio (cheaper to dearer) should a grocer mix two varieties of pulses costing ₹18 and ₹22 per kg, respectively, to obtain a mixture worth ₹19.50 per kg?

एक पंसारी को क्रमशः ₹18 और ₹22 प्रति kg मूल्य वाली दालों की दो किस्मों को किस अनुपात (सस्ती से महँगी) में मिलाना चाहिए, ताकि ₹19.50 प्रति kg मूल्य का मिश्रण प्राप्त हो?

(1) 5 : 3 ✔
(2) 4 : 3
(3) 2 : 5
(4) 3 : 7

Q.46 Three cubes with sides in the ratio 2 : 3 : 4 are melted to form a single cylinder whose radius is 6 cm and height is 7 cm. What are the sides of the cubes?
(Given: π = 22/7.)

2 : 3 : 4 के अनुपात में भुजाओं वाले तीन घनों को पिघलाकर एक बेलन बनाया जाता है जिसकी त्रिज्या 6 cm और ऊँचाई 7 cm है। घनों की भुजाएँ क्या हैं?
(दिया गया है: π = 22/7.)

(1) 2 cm, 3 cm and 4 cm / 2 cm, 3 cm और 4 cm
(2) 8 cm, 12 cm and 16 cm / 8 cm, 12 cm और 16 cm
(3) 4 cm, 6 cm and 8 cm / 4 cm, 6 cm और 8 cm ✔
(4) 6 cm, 9 cm and 12 cm / 6 cm, 9 cm और 12 cm

QuickSarkari.com | WhatsApp Channel | Telegram: t.me/quick_sarkari

Q.47 A group of 5 workers can complete a task in 12 days. After 4 days, 2 more workers join the group. In how many more days will the remaining work be completed?

5 श्रमिकों का एक समूह किसी कार्य को 12 दिनों में पूरा कर सकता है। 4 दिनों के बाद, 2 और श्रमिक समूह में शामिल हो जाते हैं। शेष कार्य कितने और दिनों में पूरा होगा?

(1) 5 3/5

(2) **5 5/7 ✔**

(3) 7 2/3

(4) 5 5/9

Q.48 A metallic rod is divided into four equal parts. These parts are then placed along the four diagonals of a cubical room with a side length of 5 m. What is the total length (in m) of the metallic rod? (√3 = 1.7)

एक धातु की छड़ को चार बराबर भागों में बाँटा जाता है। फिर इन भागों को 5 m भुजा वाले एक घनाकार कमरे के चारों विकर्णों के अनुदिश रखा जाता है। धातु की छड़ की कुल लंबाई (m में) क्या है? (√3 = 1.7)

(1) 32

(2) 36

(3) **34 ✔**

(4) 38

Q.49 A shopkeeper sold a book at a loss of 7%. If the selling price had been increased by ₹120, there would have been a gain of 18%. What was the cost price (in ₹) of the book?

एक दुकानदार ने एक पुस्तक 7% की हानि पर बेची। यदि विक्रय मूल्य ₹120 अधिक होता, तो 18% का लाभ होता। पुस्तक का क्रय मूल्य (₹ में) क्या था?

(1) 475

(2) 490

(3) 485

(4) **480 ✔**

Q.50 A shopkeeper bought a chair for ₹2,400 and spent ₹100 on its transportation. He sold it for ₹3,000. What is his profit percentage?

एक दुकानदार ने ₹2,400 में एक कुर्सी खरीदी और उसके परिवहन पर ₹100 खर्च किए। उसने इसे ₹3,000 में बेच दिया। उसका लाभ प्रतिशत क्या है?

(1) **20% ✔**

(2) 18%

(3) 15%

(4) 25%

Q.51 What sum (in ₹) will earn a simple interest of ₹1560 in 2 years at 16% per year rate of interest?

16% वार्षिक ब्याज दर पर कितनी राशि (₹ में) पर 2 वर्षों में ₹1560 का साधारण ब्याज प्राप्त होगा?

(1) **4875 ✔**

(2) 9750

(3) 499.2

(4) 2437.5

QuickSarkari.com | WhatsApp Channel | Telegram: t.me/quick_sarkari

Q.52 Which of the following exactly divides 281 × 926 × 2007?

निम्नलिखित में से कौन-सी संख्या 281 × 926 × 2007 को पूर्णतः विभाजित करती है?

(1) 7

(2) 5

(3) **9** ✔

(4) 11

Q.53 The value of $(5 + 2\sqrt{6}) + 1/(5 - 2\sqrt{6}) - (10 + 4\sqrt{6})$ is:

$(5 + 2\sqrt{6}) + 1/(5 - 2\sqrt{6}) - (10 + 4\sqrt{6})$ का मान है:

(1) 4

(2) 2

(3) **0** ✔

(4) 1

Q.54 A and B can do a piece of work in 12 days and 28 days, respectively. Both work for 3 days and then A goes away. How long (in days) will B take to complete the remaining work?

A और B किसी कार्य को क्रमशः 12 दिनों और 28 दिनों में कर सकते हैं। दोनों 3 दिनों तक कार्य करते हैं और फिर A चला जाता है। शेष कार्य को पूरा करने में B को कितना समय (दिनों में) लगेगा?

(1) **18** ✔

(2) 19

(3) 17

(4) 20

Q.55 The table given below shows the number of cycles sold by five showr Study the table and answer the question that follows.

YEAR/SHOWROOM P Q R 2019 360 380 340 2020 320 350 380 2021 410 400 480 2022 480 470 420 2023 520 410 500 Find the number of cycles sold by showroom Q during the years 2020

नीचे दी गई तालिका पाँच शोरूम द्वारा बेची गई साइकिलों की संख्या दर्शाती है। तालिका का अध्ययन करें और नीचे दिए गए प्रश्न का उत्तर दें।

वर्ष/शोरूम P Q R 2019 360 380 340 2020 320 350 380 2021 410 400 480 2022 480 470 420 2023 520 410 500 वर्ष 2020 के दौरान शोरूम Q द्वारा बेची गई साइकिलों की संख्या ज्ञात कीजिए

(1) **1630** ✔

(2) 1720

(3) 1580

(4) 1370

Q.56 There are three types of drinks in which the ratios of juice to water are 2 : 3, 3 : 7, and 4 : 5. Container M is completely filled with the first type of drink, container N is completely filled with the second type of drink, and container O is completely filled with the third type of drink. If the capacities of these containers are in the ratio 6 : 5 : 4, which containers contains the least amount of juice?

तीन प्रकार के पेय हैं जिनमें जूस और पानी का अनुपात क्रमशः 2 : 3, 3 : 7 और 4 : 5 है। पात्र M पूरी तरह से पहले प्रकार के पेय से भरा है, पात्र N पूरी तरह से दूसरे प्रकार के पेय से भरा है, और पात्र O पूरी तरह से तीसरे प्रकार के पेय से भरा है। यदि इन पात्रों की धारिताएँ 6 : 5 : 4 के अनुपात में हैं, तो किस पात्र में जूस की मात्रा सबसे कम है?

(1) **N** ✔

(2) All have equal amount of juice. / सभी में जूस की मात्रा बराबर है।

(3) M

(4) O

Q.57 Two trains of lengths 200 m and 400 m are 150 m apart. They start moving towards each other on parallel tracks, at speeds 130 km/hr and 140 km/hr. In how much time (in seconds) will the trains cross each other?

200 m और 400 m लंबाई वाली दो रेलगाड़ियाँ एक-दूसरे से 150 m की दूरी पर हैं। वे समानांतर पटरियों पर 130 km/hr और 140 km/hr की चाल से एक-दूसरे की ओर चलना शुरू करती हैं। रेलगाड़ियाँ एक-दूसरे को कितने समय (सेकंड में) में पार करेंगी?

(1) 15
(2) 5
(3) **10** ✔
(4) 20

Q.58 Find the fourth proportional to the number 24, 32 and 42.

संख्याओं 24, 32 और 42 का चतुर्थानुपाती ज्ञात कीजिए।

(1) 28
(2) 42
(3) **56** ✔
(4) 63

Q.59 The population of a city increases by 5% annually. The present population of the city is 1,86,102. The population of this city two years ago was _____.

एक शहर की जनसंख्या में प्रतिवर्ष 5% की वृद्धि होती है। शहर की वर्तमान जनसंख्या 1,86,102 है। दो वर्ष पहले इस शहर की जनसंख्या _____ थी।

(1) 1,88,600
(2) **1,68,800** ✔
(3) 1,86,800
(4) 84,400

Q.60 Ajay takes 46 hours to row 130 km upstream and 260 km downstream. Additionally, he takes 34 hours to swim 90 km upstream and 208 km downstream. What is the speed of Ajay in still water?

अजय को धारा के प्रतिकूल 130 km और धारा के अनुकूल 260 km नाव चलाने में 46 घंटे लगते हैं। इसके अतिरिक्त, उसे धारा के प्रतिकूल 90 km और धारा के अनुकूल 208 km तैरने में 34 घंटे लगते हैं। शांत जल में अजय की चाल क्या है?

(1) **9 km/hr** ✔
(2) 7 km/hr
(3) 12 km/hr
(4) 10 km/hr

English Language and Comprehension

Q.61 Choose the option that shows the same kind of relationship/connection as the given sentence.
The thief broke the lock to enter the house.

(1) The player trained hard for the match.
(2) The author revised the manuscript again.
(3) The gardener watered the plants in the morning.
(4) **The spy hacked the system to steal data.** ✔

Q.62 Select the most appropriate article to fill in the blank. If no article is needed, select 'No article required'.
She read about _____ theory of relativity in the physics textbook.

(1) a
(2) No article required
(3) **the ✔**
(4) an

Q.63 Select the option that is the most appropriate antonym of the underlined word in the given sentence.
He was criticised for his insolent behaviour.

(1) **courteous ✔**
(2) unethical
(3) aggressive
(4) warranted

Q.64 In the given question, a statement divided into different segments is given. The first segment is fixed. Rearrange the other segments to form a coherent statement.
1)The innovative scientist conducted a series of experiments
A) that could change the future of medicine
B) with meticulous attention to detail
C) in her state-of-the-art laboratory
D) leading to ground breaking discoveries

(1) 1-B-A-C-D
(2) 1-C-A-D-B
(3) **1-C-B-D-A ✔**
(4) 1-D-B-A-C

Q.65 Substitute with one word The term that refers to the systematic study of religion and religious beliefs.

(1) Sociology
(2) **Theology ✔**
(3) Anthropology
(4) Mythology

Q.66 Select the option that is the most appropriate antonym of the underlined word in the given sentence.
The government's response to the disaster was expeditious and effective.

(1) coordinated
(2) haphazard
(3) decentralised
(4) **lagging ✔**

Q.67 Complete the sentence with the appropriate word.
The team worked _____ to finish the project before the deadline.

(1) reluctantly
(2) rarely
(3) randomly
(4) **tirelessly ✔**

Q.68 Choose the option that can replace the highlighted text with the correct proverb.
After losing the match, the team realized that there was no point worrying about what had already happened hence they started to focus on preparing for the next game.

(1) A stitch in time saves nine
(2) It's no use crying over spilt milk ✔
(3) Actions speak louder than words
(4) Empty vessels make

Q.69 Parts of a sentence are given below in jumbled order. The first part of the sentence is fixed, followed by P, Q, R, S, and T. Arrange the jumbled parts in the correct order to form a meaningful sentence.
The cleanliness drive in India
P: for spreading awareness
Q: under the Swachh Bharat Abhiyan
R: has become a nationwide movement
S: among school and college students T: led by enthusiastic volunteers

(1) Q R T P S ✔
(2) S Q T P R
(3) T R P S Q
(4) P S Q T R

Q.70 Parts of the given sentence have been underlined. One of them contains a spelling error. The underlined parts are given as options with some changes. Select the option that correctly rectifies the error.
If someone priorritizes something over others, he treats it as more important than other things.

(1) Thinngs
(2) Somaone
(3) Immportant
(4) Prioritizes ✔

Q.71 Select the misspelt word.

(1) Casualty
(2) Deterreed ✔
(3) Binocular
(4) Cowardice

Q.72 A sentence has been given with highlighted text. You are required to replace it with the correct idiom from the options.
By rebuking the protestors, you will only aggravate the situation and perhaps cause more problems.

(1) kick up a row
(2) add fuel to the fire ✔
(3) break loose
(4) break the ice

QuickSarkari.com | WhatsApp Channel | Telegram: t.me/quick_sarkari

Q.73 Complete the sentence with the appropriate word.
The students _____ their notebooks during the lecture.

(1) narrated
(2) **opened ✔**
(3) discarded
(4) published

Q.74 Select the most appropriate option to fill in the blank.
The novel offers a _____ portrayal of rural life, neither idealising nor condemning it.

(1) **balanced ✔**
(2) superficial
(3) distorted
(4) sentimental

Q.75 Choose the appropriate option to complete the sentence.
Meera narrated ___ incredible story about her travels and shared ___ amusing incident from her childhood.

(1) **an / an ✔**
(2) a / a
(3) the / a
(4) the / the

Q.76

Read the given passage and answer the questions that follow.
The night was routine, the sky clear, as Malaysia Airlines Flight MH370 soared above the South China Sea. The Boeing 777, carrying 239 passengers and crew, had just begun its journey from Kuala Lumpur to Beijing. Inside the cabin, travellers settled in—some asleep, others watching movies, unaware that they were part of what would become one of aviation's greatest mysteries. At 1:19 a.m., the pilot's calm voice radioed air traffic control: "Good night, Malaysian three-seven- zero." Minutes later, the plane vanished from radar. No distress signal. No final call. Just silence. As confusion turned to panic, search teams scrambled across vast oceans, chasing scattered leads. Satellite data suggested the aircraft had veered off course, flying for hours into the remote Indian Ocean.
Despite the largest and most expensive search effort in aviation history, only a few debris pieces were ever found. Theories arose—mechanical failure, pilot intervention, hijacking—but the truth remained elusive. Families waited for answers that never came.
Even today, the fate of MH370 haunts the world. It is a chilling reminder of how, in an age of technology, a massive aircraft can simply disappear—leaving behind only questions, grief and an endless sky.

What made the disappearance of MH370 unusual?

(1) **It vanished from radar without any warning or final communication. ✔**
(2) It was found shortly after crashing into the sea.
(3) The flight was never scheduled to take off that day.
(4) The aircraft sent multiple distress signals before vanishing.

QuickSarkari.com | WhatsApp Channel | Telegram: t.me/quick_sarkari

Q.77

Read the given passage and answer the questions that follow.
The night was routine, the sky clear, as Malaysia Airlines Flight MH370 soared above the South China Sea. The Boeing 777, carrying 239 passengers and crew, had just begun its journey from Kuala Lumpur to Beijing. Inside the cabin, travellers settled in—some asleep, others watching movies, unaware that they were part of what would become one of aviation's greatest mysteries. At 1:19 a.m., the pilot's calm voice radioed air traffic control: "Good night, Malaysian three-seven- zero." Minutes later, the plane vanished from radar. No distress signal. No final call. Just silence. As confusion turned to panic, search teams scrambled across vast oceans, chasing scattered leads. Satellite data suggested the aircraft had veered off course, flying for hours into the remote Indian Ocean.
Despite the largest and most expensive search effort in aviation history, only a few debris pieces were ever found. Theories arose—mechanical failure, pilot intervention, hijacking—but the truth remained elusive. Families waited for answers that never came.
Even today, the fate of MH370 haunts the world. It is a chilling reminder of how, in an age of technology, a massive aircraft can simply disappear—leaving behind only questions, grief and an endless sky.

What is one of the biggest challenges in solving the MH370 mystery?

(1) The absence of eyewitnesses in the cockpit
(2) The clear recordings of the final moments of the flight
(3) **The remote location where the plane is believed to have crashed ✔**
(4) The overwhelming amount of evidence collected

Q.78

Read the given passage and answer the questions that follow.
The night was routine, the sky clear, as Malaysia Airlines Flight MH370 soared above the South China Sea. The Boeing 777, carrying 239 passengers and crew, had just begun its journey from Kuala Lumpur to Beijing. Inside the cabin, travellers settled in—some asleep, others watching movies, unaware that they were part of what would become one of aviation's greatest mysteries. At 1:19 a.m., the pilot's calm voice radioed air traffic control: "Good night, Malaysian three-seven- zero." Minutes later, the plane vanished from radar. No distress signal. No final call. Just silence. As confusion turned to panic, search teams scrambled across vast oceans, chasing scattered leads. Satellite data suggested the aircraft had veered off course, flying for hours into the remote Indian Ocean.
Despite the largest and most expensive search effort in aviation history, only a few debris pieces were ever found. Theories arose—mechanical failure, pilot intervention, hijacking—but the truth remained elusive. Families waited for answers that never came.
Even today, the fate of MH370 haunts the world. It is a chilling reminder of how, in an age of technology, a massive aircraft can simply disappear—leaving behind only questions, grief and an endless sky.

What does the search for MH370 highlight about modern aviation?

(1) **The challenges of tracking planes over vast oceans ✔**
(2) The ability of technology to prevent aircraft disappearances
(3) The efficiency of aviation safety protocols
(4) The importance of passenger cooperation during flights

Q.79

Read the given passage and answer the questions that follow.
The night was routine, the sky clear, as Malaysia Airlines Flight MH370 soared above the South China Sea. The Boeing 777, carrying 239 passengers and crew, had just begun its journey from Kuala Lumpur to Beijing. Inside the cabin, travellers settled in—some asleep, others watching movies, unaware that they were part of what would become one of aviation's greatest mysteries. At 1:19 a.m., the pilot's calm voice radioed air traffic control: "Good night, Malaysian three-seven- zero." Minutes later, the plane vanished from radar. No distress signal. No final call. Just silence. As confusion turned to panic, search teams scrambled across vast oceans, chasing scattered leads. Satellite data suggested the aircraft had veered off course, flying for hours into the remote Indian Ocean.
Despite the largest and most expensive search effort in aviation history, only a few debris pieces were ever found. Theories arose—mechanical failure, pilot intervention, hijacking—but the truth remained elusive. Families waited for answers that never came.
Even today, the fate of MH370 haunts the world. It is a chilling reminder of how, in an age of technology, a massive aircraft can simply disappear—leaving behind only questions, grief and an endless sky.

Select the most appropriate ANTONYM of the word 'elusive' in the context of the MH370 investigation.

(1) Hidden
(2) Obvious ✔
(3) Unclear
(4) Mysterious

Q.80

Read the given passage and answer the questions that follow.
The night was routine, the sky clear, as Malaysia Airlines Flight MH370 soared above the South China Sea. The Boeing 777, carrying 239 passengers and crew, had just begun its journey from Kuala Lumpur to Beijing. Inside the cabin, travellers settled in—some asleep, others watching movies, unaware that they were part of what would become one of aviation's greatest mysteries. At 1:19 a.m., the pilot's calm voice radioed air traffic control: "Good night, Malaysian three-seven- zero." Minutes later, the plane vanished from radar. No distress signal. No final call. Just silence. As confusion turned to panic, search teams scrambled across vast oceans, chasing scattered leads. Satellite data suggested the aircraft had veered off course, flying for hours into the remote Indian Ocean.
Despite the largest and most expensive search effort in aviation history, only a few debris pieces were ever found. Theories arose—mechanical failure, pilot intervention, hijacking—but the truth remained elusive. Families waited for answers that never came.
Even today, the fate of MH370 haunts the world. It is a chilling reminder of how, in an age of technology, a massive aircraft can simply disappear—leaving behind only questions, grief and an endless sky.

What is the overall tone of the passage?

(1) Hopeful and optimistic
(2) Mysterious and tragic ✔
(3) Aggressive and confrontational
(4) Humorous and lighthearted

Hindi Language and Comprehension

Q.81 निम्नलिखित वाक्यों को ध्यान से पढ़कर दिए गए विकल्पों में से उचित क्रम चुनिए –
1. दूसरी मस्तिष्क की
2. मनुष्य की समस्याएँ दो प्रकार की हैं
3. किन्तु प्रत्येक मनुष्य की अंतिम परिणति मृत्यु है
4. एक समस्या शरीर की है

(1) 4, 1, 3, 2
(2) **2, 4, 1, 3 ✔**
(3) 1, 3, 4, 2
(4) 3, 2, 4, 1

Q.82 निम्नलिखित वाक्य के रेखांकित शब्द का पर्यायवाची कौन-सा नहीं है?
'मेरी माँ मुझे बहुत प्रेम करती है।'

(1) **पूजनीय ✔**
(2) मैया
(3) माता
(4) जननी

Q.83 दिये गए वाक्य के रेखांकित शब्द का विलोम शब्द चुनिए - साहित्यकार ने कहानी के माध्यम से सामाजिक व्यवस्था की आलोचना परोक्ष रूप से की।

(1) अप्रत्यक्ष
(2) **प्रत्यक्ष ✔**
(3) प्रमाण
(4) साक्ष्य

Q.84 दिए गए वाक्य को सही क्रम में लगाइए- (1)रोज (2)करना (3)व्यायाम (4)हमें (5)चाहिए

(1) **4 1 3 2 5 ✔**
(2) 1 2 3 4 5
(3) 5 1 3 2 4
(4) 3 4 5 1 2

Q.85 निम्न में से 'ताल ठोंकना' मुहावरे का सही अर्थ कौन-सा है ?

(1) नष्ट-भ्रष्ट होना
(2) बुरे दिन आना
(3) **लड़ने के लिए ललकार देना ✔**
(4) इशारों पर चलना

Q.86 निम्नलिखित वाक्य में से वर्तनी त्रुटि की पहचान कर वाक्य को शुद्ध कीजिए।
'भरथ, अपने बड़े भाई श्रीराम के प्रति गहरी निष्ठा और सम्मान का भाव रखते थे।'

(1) **भरथ ✔**
(2) निष्ठा
(3) सम्मान
(4) प्रति

Q.87 नीचे दिए गए वाक्यों में से वर्तनी की दृष्टि से शुद्ध वाक्य का चयन कीजिए।

(1) अत्यधिक दुःख सहा नहीं जाता । ✔

(2) संसारिक समस्या क्या है ?

(3) मालन ताज़ा फूल लाई है।

(4) यह नेता मंत्रीपरिषद् में नहीं है।

Q.88 उपयुक्त 'क्रिया-विशेषण' का चयन कर रिक्त स्थान की पूर्ति कीजिए ।

'कल .....से बारिश होने लगी थी।'

(1) अचानक ✔

(2) घर -घर

(3) दिन -रात

(4) ठीक

Q.89 निम्नलिखित में से किस मुहावरे का अर्थ संगत नहीं है?

(1) फट पड़ना - एकदम गुस्से में हो जाना

(2) सिट्टी-पिट्टी गुम हो जाना - होश उड़ जाना

(3) सोने का घर मिट्टी कर देना - आने-जाने की जल्दी मचाना ✔

(4) हवा के घोड़े पर सवार होना - आने-जाने की जल्दी मचाना

Q.90 सही क्रिया का चयन कर वाक्य को पूर्ण कीजिए।

सानिया पिंजड़े से तोता .....देती है।

(1) सिला

(2) बैठा

(3) उड़ा ✔

(4) खिला

Q.91 निम्नलिखित वाक्य में रेखांकित शब्द के पर्यायवाची शब्द का चयन दिए गए विकल्पों में से कीजिए- शरद पूर्णिमा के 'चाँद' की छटा ही निराली होती है।

(1) दिवाकर

(2) इन्दु ✔

(3) मोहिनी

(4) रत्नेश

Q.92 निम्न में से 'अंगारों पर पैर रखना' मुहावरे का सही अर्थ बताइए -

(1) अपने को होशियार समझना

(2) कुछ दिनों की शानोशौकत

(3) जान-बूझकर हानिकारक कार्य करना ✔

(4) रहने का संयोग न होना

Q.93 निम्नांकित विकल्पों में से उचित कारक चिन्ह का चयन करके वाक्य पूर्ण करें- सभी बच्चों ..... मिलकर अपने विद्यालय के मैदान की सफाई की।

(1) से

(2) को

(3) के

(4) ने ✔

Q.94 उचित विशेषण शब्द चुनकर वाक्य पूरा कीजिए।
' _____ गधा भागा जा रहा है। '

(1) वह ✔
(2) वे
(3) जिस
(4) जितना

Q.95 उपयुक्त अधिकरण कारक के प्रयोग से वाक्य को पूर्ण कीजिए।
बच्चा पलंग ..... सोया है।

(1) पर ✔
(2) के लिए
(3) से
(4) में

Q.96

निम्नलिखित गद्यांश के आधार पर पूछे गए प्रश्नों के सही विकल्प का चयन करें- हमारी सर्वोच्च प्राथमिकता जनसंख्या वृद्धि रोकना है। यह स्पष्ट है कि परिवार के आकार पर आर्थिक विकास और शिक्षा का बहुत प्रभाव पड़ता है। यहाँ आर्थिक विकास का मतलब पाश्चात्य मतानुसार भौतिकवाद नहीं जहाँ बच्चों को बोझ माना जाता है। हमारे लिए तो यह सम्मानपूर्वक जीने के स्तर से सम्बन्धित है। यह मौजूदा सम्पत्ति के समतामूलक विवरण पर ही निर्भर नहीं है वरन् ऐसी शैली अपनाने से सम्बन्धित है जिसमें अस्सी करोड़ लोगों की ऊर्जा का बेहतर इस्तेमाल हो सके। इसी प्रकार स्त्री-शिक्षा भी है। यह समाज में एक नए प्रकार का चिन्तन पैदा करेगी जिससे सामाजिक और आर्थिक विकास के नए आयाम खुलेंगे और साथ ही बच्चों के विकास का नया रास्ता भी खुलेगा। अतः जनसंख्या की समस्या सामाजिक है। यह अकेले सरकार नहीं सुलझा सकती।
केन्द्रीयकरण से हटकर इसे ग्राम-ग्राम, व्यक्ति-व्यक्ति तक पहुँचाना होगा। जब तक यह जन आन्दोलन नहीं बन जाता तब तक सफलता मिलना संदिग्ध है।

परिवार के आकार को मुख्य रूप से कौन से दो कारक प्रभावित करते हैं?

(1) सरकारी कानून और दंड
(2) शहरीकरण और आधुनिकता
(3) आर्थिक विकास और शिक्षा ✔
(4) धार्मिक मान्यताएँ और परंपराएँ

Q.97

निम्नलिखित गद्यांश के आधार पर पूछे गए प्रश्नों के सही विकल्प का चयन करें- हमारी सर्वोच्च प्राथमिकता जनसंख्या वृद्धि रोकना है। यह स्पष्ट है कि परिवार के आकार पर आर्थिक विकास और शिक्षा का बहुत प्रभाव पड़ता है। यहाँ आर्थिक विकास का मतलब पाश्चात्य मतानुसार भौतिकवाद नहीं जहाँ बच्चों को बोझ माना जाता है। हमारे लिए तो यह सम्मानपूर्वक जीने के स्तर से सम्बन्धित है। यह मौजूदा सम्पत्ति के समतामूलक विवरण पर ही निर्भर नहीं है वरन् ऐसी शैली अपनाने से सम्बन्धित है जिसमें अस्सी करोड़ लोगों की ऊर्जा का बेहतर इस्तेमाल हो सके। इसी प्रकार स्त्री-शिक्षा भी है। यह समाज में एक नए प्रकार का चिन्तन पैदा करेगी जिससे सामाजिक और आर्थिक विकास के नए आयाम खुलेंगे और साथ ही बच्चों के विकास का नया रास्ता भी खुलेगा। अतः जनसंख्या की समस्या सामाजिक है। यह अकेले सरकार नहीं सुलझा सकती।
केन्द्रीयकरण से हटकर इसे ग्राम-ग्राम, व्यक्ति-व्यक्ति तक पहुँचाना होगा। जब तक यह जन आन्दोलन नहीं बन जाता तब तक सफलता मिलना संदिग्ध है।

लेखक के अनुसार 'आर्थिक विकास' का भारतीय संदर्भ में क्या अर्थ है?

(1) विदेशी निवेश में वृद्धि करना
(2) केवल संपत्ति का समान वितरण करना
(3) पाश्चात्य भौतिकवाद को अपनाना
(4) सम्मानपूर्वक जीने के स्तर को प्राप्त करना ✔

Q.98

निम्नलिखित गद्यांश के आधार पर पूछे गए प्रश्नों के सही विकल्प का चयन करें- हमारी सर्वोच्च प्राथमिकता जनसंख्या वृद्धि रोकना है। यह स्पष्ट है कि परिवार के आकार पर आर्थिक विकास और शिक्षा का बहुत प्रभाव पड़ता है। यहाँ आर्थिक विकास का मतलब पाश्चात्य मतानुसार भौतिकवाद नहीं जहाँ बच्चों को बोझ माना जाता है। हमारे लिए तो यह सम्मानपूर्वक जीने के स्तर से सम्बन्धित है। यह मौजूदा सम्पत्ति के समतामूलक विवरण पर ही निर्भर नहीं है वरन् ऐसी शैली अपनाने से सम्बन्धित है जिसमें अस्सी करोड़ लोगों की ऊर्जा का बेहतर इस्तेमाल हो सके। इसी प्रकार स्त्री-शिक्षा भी है। यह समाज में एक नए प्रकार का चिन्तन पैदा करेगी जिससे सामाजिक और आर्थिक विकास के नए आयाम खुलेंगे और साथ ही बच्चों के विकास का नया रास्ता भी खुलेगा। अतः जनसंख्या की समस्या सामाजिक है। यह अकेले सरकार नहीं सुलझा सकती।
केन्द्रीयकरण से हटकर इसे ग्राम-ग्राम, व्यक्ति-व्यक्ति तक पहुँचाना होगा। जब तक यह जन आन्दोलन नहीं बन जाता तब तक सफलता मिलना संदिग्ध है।

स्त्री-शिक्षा को जनसंख्या नियंत्रण में क्यों महत्त्वपूर्ण माना गया है?

(1) यह समाज में नया चिंतन पैदा करती है ✓

(2) यह सरकारी बोझ कम करती है

(3) इससे जनसंख्या का केंद्रीकरण रुकता है

(4) इससे स्त्रियाँ केवल नौकरी कर सकेंगी

Q.99

निम्नलिखित गद्यांश के आधार पर पूछे गए प्रश्नों के सही विकल्प का चयन करें- हमारी सर्वोच्च प्राथमिकता जनसंख्या वृद्धि रोकना है। यह स्पष्ट है कि परिवार के आकार पर आर्थिक विकास और शिक्षा का बहुत प्रभाव पड़ता है। यहाँ आर्थिक विकास का मतलब पाश्चात्य मतानुसार भौतिकवाद नहीं जहाँ बच्चों को बोझ माना जाता है। हमारे लिए तो यह सम्मानपूर्वक जीने के स्तर से सम्बन्धित है। यह मौजूदा सम्पत्ति के समतामूलक विवरण पर ही निर्भर नहीं है वरन् ऐसी शैली अपनाने से सम्बन्धित है जिसमें अस्सी करोड़ लोगों की ऊर्जा का बेहतर इस्तेमाल हो सके। इसी प्रकार स्त्री-शिक्षा भी है। यह समाज में एक नए प्रकार का चिन्तन पैदा करेगी जिससे सामाजिक और आर्थिक विकास के नए आयाम खुलेंगे और साथ ही बच्चों के विकास का नया रास्ता भी खुलेगा। अतः जनसंख्या की समस्या सामाजिक है। यह अकेले सरकार नहीं सुलझा सकती।
केन्द्रीयकरण से हटकर इसे ग्राम-ग्राम, व्यक्ति-व्यक्ति तक पहुँचाना होगा। जब तक यह जन आन्दोलन नहीं बन जाता तब तक सफलता मिलना संदिग्ध है।

जनसंख्या नियंत्रण में सफलता मिलने की संभावना कब तक संदिग्ध है?

(1) जब तक सरकार कड़े नियम न बनाए

(2) जब तक अस्सी करोड़ लोग शिक्षित न हो जाएँ

(3) जब तक नई तकनीक न आ जाए

(4) जब तक यह एक जन आंदोलन नहीं बन जाता ✓

Q.100

निम्नलिखित गद्यांश के आधार पर पूछे गए प्रश्नों के सही विकल्प का चयन करें- हमारी सर्वोच्च प्राथमिकता जनसंख्या वृद्धि रोकना है। यह स्पष्ट है कि परिवार के आकार पर आर्थिक विकास और शिक्षा का बहुत प्रभाव पड़ता है। यहाँ आर्थिक विकास का मतलब पाश्चात्य मतानुसार भौतिकवाद नहीं जहाँ बच्चों को बोझ माना जाता है। हमारे लिए तो यह सम्मानपूर्वक जीने के स्तर से सम्बन्धित है। यह मौजूदा सम्पत्ति के समतामूलक विवरण पर ही निर्भर नहीं है वरन् ऐसी शैली अपनाने से सम्बन्धित है जिसमें अस्सी करोड़ लोगों की ऊर्जा का बेहतर इस्तेमाल हो सके। इसी प्रकार स्त्री-शिक्षा भी है। यह समाज में एक नए प्रकार का चिन्तन पैदा करेगी जिससे सामाजिक और आर्थिक विकास के नए आयाम खुलेंगे और साथ ही बच्चों के विकास का नया रास्ता भी खुलेगा। अतः जनसंख्या की समस्या सामाजिक है। यह अकेले सरकार नहीं सुलझा सकती।
केन्द्रीयकरण से हटकर इसे ग्राम-ग्राम, व्यक्ति-व्यक्ति तक पहुँचाना होगा। जब तक यह जन आन्दोलन नहीं बन जाता तब तक सफलता मिलना संदिग्ध है।

लेखक ने 'केंद्रीकरण' के विरुद्ध क्या सुझाव दिया है?

(1) सिर्फ शहरों में अस्पताल खोलना
(2) विदेशी मॉडल को पूर्णतः लागू करना
(3) सभी शक्तियाँ केंद्र सरकार को देना
(4) योजना को ग्राम और व्यक्ति स्तर तक पहुँचाना ✔

Assistant Teacher (Primary) – PRT

Q.101 Which principle of growth and development explains why children gain control of their head and upper body movements before they can control their legs and feet?
वृद्धि और विकास का कौन-सा सिद्धांत यह स्पष्ट करता है कि बच्चे अपने पैरों और पंजों पर नियंत्रण करने से पहले अपने सिर और शरीर के ऊपरी भाग की गतिविधियों पर नियंत्रण क्यों प्राप्त कर लेते हैं?

(1) Proximodistal principle / समीप-दूराभिमुख सिद्धांत (Proximodistal principle)
(2) Maturation / परिपक्वता
(3) Principle of individual differences / वैयक्तिक भिन्नता का सिद्धांत
(4) Cephalocaudal principle / शिरःपदाभिमुख सिद्धांत (Cephalocaudal principle) ✔

Q.102 How did the implementation of the Universalization of Elementary Education (UEE) impact the demand for secondary education in India?
प्रारंभिक शिक्षा के सार्वभौमीकरण (UEE) के कार्यान्वयन नेभारत में माध्यमिक शिक्षा की माँग को किस प्रकार प्रभावित किया?

(1) It had no impact on secondary education / इसका माध्यमिक शिक्षा पर कोई प्रभाव नहीं पड़ा
(2) It decreased household interest in education / इसने शिक्षा में परिवारों की रुचि को कम कर दिया
(3) It reduced the need for secondary schools / इसने माध्यमिक विद्यालयों की आवश्यकता को कम कर दिया
(4) It increased the demand for secondary education / इसने माध्यमिक शिक्षा की माँग को बढ़ा दिया ✔

Q.103 During which stage do children develop the ability to understand that objects continue to exist even when out of sight?
किस अवस्था के दौरान बच्चों में यह समझने की क्षमता विकसित होती है कि वस्तुएँ दृष्टि से ओझल होने पर भी अस्तित्व में रहती हैं?

(1) Formal operational stage / औपचारिक संक्रियात्मक अवस्था
(2) Pre-operational stage / पूर्व-संक्रियात्मक अवस्था
(3) Concrete operational stage / मूर्त संक्रियात्मक अवस्था
(4) Sensorimotor stage / संवेदी-गामक अवस्था ✔

Q.104 A teacher in Varanasi wants to promote motor development in infants. Which activity would best support the development of both gross and fine motor skills in children under one year?
वाराणसी में एक शिक्षक शिशुओं में गामक विकास को बढ़ावा देना चाहता है। एक वर्ष से कम आयु के बच्चों में स्थूल और सूक्ष्म दोनों गामक कौशलों के विकास में कौन-सी गतिविधि सबसे अधिक सहायक होगी?

(1) Encouraging group games that involve running and jumping / दौड़ने और कूदने वाले सामूहिक खेलों को प्रोत्साहित करना

(2) Providing tummy time and offering colorful blocks to grasp / पेट के बल लिटाने का समय (टमी टाइम) देना और पकड़ने के लिए रंगीन ब्लॉक देना ✔

(3) Teaching children to button shirts and tie shoelaces / बच्चों को कमीज़ के बटन लगाना और जूतों के फीते बाँधना सिखाना

(4) Reading picture books aloud and singing lullabies daily / प्रतिदिन चित्र-पुस्तकें पढ़कर सुनाना और लोरियाँ गाना

Q.105 According to Piaget's theory, which cognitive ability marks the preoperational stage in children?
पियाजे के सिद्धांत के अनुसार, कौन-सी संज्ञानात्मक क्षमता बच्चों में पूर्व-संक्रियात्मक अवस्था को चिह्नित करती है?

(1) Ability to solve complex logical problems / जटिल तार्किक समस्याओं को हल करने की क्षमता

(2) Ability to use symbols and language / प्रतीकों और भाषा का उपयोग करने की क्षमता ✔

(3) Ability to understand conservation of mass / द्रव्यमान के संरक्षण को समझने की क्षमता

(4) Ability to think in abstract terms / अमूर्त रूप से सोचने की क्षमता

Q.106 What does 'socialization' primarily refer to in the context of education?
शिक्षा के संदर्भ में 'समाजीकरण' का मुख्य रूप से क्या अर्थ है?

(1) The process of learning a new language for communication in diverse settings. / विविध परिवेशों में संप्रेषण के लिए एक नई भाषा सीखने की प्रक्रिया।

(2) The process of teaching only academic subjects like math and science in classrooms. / कक्षाओं में केवल गणित और विज्ञान जैसे शैक्षणिक विषयों को पढ़ाने की प्रक्रिया।

(3) The act of forming friendships only in school environments with peer groups. / केवल विद्यालयी वातावरण में साथी समूहों के साथ मित्रता बनाने का कार्य।

(4) The process by which individuals learn and adopt the norms, values, and behaviors of their society. / वह प्रक्रिया जिसके द्वारा व्यक्ति अपने समाज के मानदंडों, मूल्यों और व्यवहारों को सीखते और अपनाते हैं। ✔

Q.107 Which of the following best defines a curriculum in the context of education?
शिक्षा के संदर्भ में निम्नलिखित में से कौन-सा पाठ्यचर्या को सबसे अच्छे ढंग से परिभाषित करता है?

(1) A schedule of school holidays and events / विद्यालय की छुट्टियों और कार्यक्रमों की समय-सारणी

(2) A list of textbooks used in a school / किसी विद्यालय में प्रयुक्त पाठ्यपुस्तकों की सूची

(3) A collection of exam papers / परीक्षा प्रश्न-पत्रों का संग्रह

(4) A planned set of learning experiences / अधिगम अनुभवों का एक नियोजित समुच्चय ✔

Q.108 As stated in its report, a major focus of the Mudaliar Commission was ____.
अपनी रिपोर्ट में बताए अनुसार, मुदालियर आयोग का एक प्रमुख केंद्र-बिंदु ____ था।

(1) Extending preschool / पूर्व-प्राथमिक शिक्षा का विस्तार करना

(2) Expanding universities / विश्वविद्यालयों का विस्तार करना

(3) Reforming textbooks / पाठ्यपुस्तकों में सुधार करना

(4) Improving secondary education / माध्यमिक शिक्षा में सुधार करना ✔

Q.109 Which factors contribute to the development of personality according to Cole and Bruce?

कोल और ब्रूस के अनुसार, कौन-से कारक व्यक्तित्व के विकास में योगदान देते हैं?

(1) Genetic endowment and cultural environment / आनुवंशिक गुण और सांस्कृतिक वातावरण ✔

(2) Physical health and intelligence / शारीरिक स्वास्थ्य और बुद्धि

(3) Social interactions and environment / सामाजिक अंतःक्रियाएँ और वातावरण

(4) Economic status and education / आर्थिक स्थिति और शिक्षा

Q.110 Which principle of growth and development is demonstrated when a child learns to control movements from the head downward?

जब कोई बच्चा सिर से नीचे की ओर गतिविधियों पर नियंत्रण करना सीखता है, तो वृद्धि और विकास का कौन-सा सिद्धांत प्रदर्शित होता है?

(1) Cephalocaudal principle / शिरःपदाभिमुख सिद्धांत (Cephalocaudal principle) ✔

(2) Equifinality principle / समान-अंतिमता सिद्धांत (Equifinality principle)

(3) Proximal-distal principle / समीप-दूराभिमुख सिद्धांत (Proximal-distal principle)

(4) Reciprocal principle / पारस्परिकता सिद्धांत (Reciprocal principle)

Q.111 Which provision of the RTE Act, 2009 most directly represents the core intent of Universalisation of Elementary Education (UEE)?

RTE अधिनियम, 2009 का कौन-सा प्रावधान प्रारंभिक शिक्षा के सार्वभौमीकरण (UEE) के मूल उद्देश्य का सबसे प्रत्यक्ष रूप से प्रतिनिधित्व करता है?

(1) Requiring periodic evaluation and qualification norms for teachers to improve instructional quality / अनुदेशात्मक गुणवत्ता में सुधार के लिए शिक्षकों हेतु आवधिक मूल्यांकन और योग्यता मानदंडों की अनिवार्यता

(2) Extending nutritional support through school-based welfare schemes to enhance retention / ठहराव बढ़ाने के लिए विद्यालय-आधारित कल्याणकारी योजनाओं के माध्यम से पोषण सहायता का विस्तार

(3) Encouraging infrastructure development and partnerships to expand educational capacity / शैक्षिक क्षमता के विस्तार के लिए अवसंरचना विकास और साझेदारी को प्रोत्साहित करना

(4) Mandating the State to provide free and compulsory education to all children aged 6-14 years / राज्य के लिए 6-14 वर्ष की आयु के सभी बच्चों को निःशुल्क और अनिवार्य शिक्षा प्रदान करना अनिवार्य करना ✔

Q.112 During the evaluation of an educational reform proposal, critics argue it fails to uphold the 'democratic' values stated in the Preamble. Which reform measure would most clearly contradict the democratic ethos of the Constitution?

एक शैक्षिक सुधार प्रस्ताव के मूल्यांकन के दौरान, आलोचकों का तर्क है कि यह प्रस्तावना में उल्लिखित 'लोकतांत्रिक' मूल्यों को बनाए रखने में विफल है। कौन-सा सुधार उपाय संविधान की लोकतांत्रिक भावना के सबसे स्पष्ट रूप से विपरीत होगा?

(1) Introducing transparent financial audits for school funds / विद्यालय निधि के लिए पारदर्शी वित्तीय लेखा-परीक्षा शुरू करना

(2) Allowing periodic feedback from parents and teachers / माता-पिता और शिक्षकों से आवधिक प्रतिपुष्टि की अनुमति देना

(3) Centralizing all decision making without stakeholder involvement / हितधारकों की भागीदारी के बिना सभी निर्णय लेने का केंद्रीकरण करना ✔

(4) Setting up student councils for school activities / विद्यालयी गतिविधियों के लिए छात्र परिषदों का गठन करना

Q.113 A state government is reviewing pupil-teacher ratios in its upper primary schools to comply with RTE standards. Which ratio should the state aim for, according to the Act?

एक राज्य सरकार RTE मानकों का पालन करने के लिए अपने उच्च प्राथमिक विद्यालयों में छात्र-शिक्षक अनुपात की समीक्षा कर रही है। अधिनियम के अनुसार, राज्य को किस अनुपात का लक्ष्य रखना चाहिए?

(1) A pupil-teacher ratio of 35:1 in upper primary schools / उच्च प्राथमिक विद्यालयों में 35:1 का छात्र-शिक्षक अनुपात ✔

(2) A pupil-teacher ratio of 25:1 in upper primary schools / उच्च प्राथमिक विद्यालयों में 25:1 का छात्र-शिक्षक अनुपात

(3) A pupil-teacher ratio of 20:1 in upper primary schools / उच्च प्राथमिक विद्यालयों में 20:1 का छात्र-शिक्षक अनुपात

(4) A pupil-teacher ratio of 50:1 in upper primary schools / उच्च प्राथमिक विद्यालयों में 50:1 का छात्र-शिक्षक अनुपात

Q.114 What learning context distinguishes primary socialization?

कौन-सा अधिगम संदर्भ प्राथमिक समाजीकरण को विशिष्ट बनाता है?

(1) Formal institutional rules / औपचारिक संस्थागत नियम

(2) Specialized curriculum input / विशिष्ट पाठ्यचर्या निवेश

(3) Affective familial orientation / भावात्मक पारिवारिक अभिविन्यास ✔

(4) Objective competitive thinking / वस्तुनिष्ठ प्रतिस्पर्धी चिंतन

Q.115 Which developmental process best explains why fine motor skills typically mature later than gross motor skills in early childhood?

कौन-सी विकासात्मक प्रक्रिया सबसे अच्छी तरह स्पष्ट करती है कि प्रारंभिक बाल्यावस्था में सूक्ष्म गामक कौशल सामान्यतः स्थूल गामक कौशलों की तुलना में बाद में परिपक्व क्यों होते हैं?

(1) Social learning / सामाजिक अधिगम

(2) Cephalocaudal development / शिरःपदाभिमुख विकास

(3) Proximodistal development / समीप-दूराभिमुख विकास ✔

(4) Cognitive maturation / संज्ञानात्मक परिपक्वता

Q.116 A teacher forms mixed groups to help students from different languages and religions work together. What societal feature is she addressing?

एक शिक्षिका विभिन्न भाषाओं और धर्मों के विद्यार्थियों को एक साथ कार्य करने में सहायता के लिए मिश्रित समूह बनाती है। वह किस सामाजिक विशेषता को संबोधित कर रही है?

(1) Structural functional interdependence / संरचनात्मक प्रकार्यात्मक अंतर्निर्भरता

(2) Normative social control mechanisms / मानकीय सामाजिक नियंत्रण तंत्र

(3) Cultural and social diversity within society / समाज के भीतर सांस्कृतिक और सामाजिक विविधता ✔

(4) Social stratification through institutional roles / संस्थागत भूमिकाओं के माध्यम से सामाजिक स्तरीकरण

Q.117 Which stage of childhood is typically marked by increased peer interaction and the development of basic social skills?

बाल्यावस्था की कौन-सी अवस्था सामान्यतः साथियों के साथ बढ़ी हुई अंतःक्रिया और बुनियादी सामाजिक कौशलों के विकास द्वारा चिह्नित होती है?

(1) Middle childhood / मध्य बाल्यावस्था

(2) Early childhood / प्रारंभिक बाल्यावस्था ✔

(3) Adolescence / किशोरावस्था

(4) Infancy / शैशवावस्था

Q.118 What is the most important aspect of socialization during infancy?

शैशवावस्था के दौरान समाजीकरण का सबसे महत्वपूर्ण पहलू क्या है?

(1) Learning social rules and norms / सामाजिक नियमों और मानदंडों को सीखना

(2) Development of language skills / भाषा कौशलों का विकास

(3) **Secure attachment with the caregiver / देखभालकर्ता के साथ सुरक्षित लगाव ✔**

(4) Formation of peer relationships / साथियों के साथ संबंधों का निर्माण

Q.119 A situation where more people are working than required is termed as _____.

वह स्थिति जिसमें आवश्यकता से अधिक लोग कार्य कर रहे होते हैं, _____ कहलाती है।

(1) Seasonal unemployment / मौसमी बेरोज़गारी

(2) Structural unemployment / संरचनात्मक बेरोज़गारी

(3) **Disguised unemployment / प्रच्छन्न बेरोज़गारी ✔**

(4) Cyclic unemployment / चक्रीय बेरोज़गारी

Q.120 A child learns what behaviour is approved or disapproved through:

एक बच्चा यह किसके माध्यम से सीखता है कि कौन-सा व्यवहार स्वीकृत है या अस्वीकृत?

(1) Heredity / आनुवंशिकता

(2) **Socialisation / समाजीकरण ✔**

(3) Punishment only / केवल दंड

(4) Physical growth / शारीरिक वृद्धि

Q.121 After participating in a simulated social studies debate, students are encouraged to connect their experience to academic concepts and apply these to a new community project. Which steps from Kolb's Experiential Learning Cycle does this most clearly illustrate?

सामाजिक अध्ययन की एक अनुरूपित (सिम्युलेटेड) वाद-विवाद में भाग लेने के बाद, विद्यार्थियों को अपने अनुभव को शैक्षणिक संकल्पनाओं से जोड़ने और इन्हें एक नई सामुदायिक परियोजना में लागू करने के लिए प्रोत्साहित किया जाता है। यह कोल्ब के अनुभवात्मक अधिगम चक्र के किन चरणों को सबसे स्पष्ट रूप से दर्शाता है?

(1) **Abstract conceptualization and active experimentation / अमूर्त संकल्पनाकरण और सक्रिय प्रयोग ✔**

(2) Concrete experience and final assessment / मूर्त अनुभव और अंतिम आकलन

(3) Reflective observation and direct instruction / चिंतनशील अवलोकन और प्रत्यक्ष अनुदेशन

(4) Memorization and passive note-taking / रटना और निष्क्रिय नोट्स लेना

Q.122 How does language function differently inside and outside the classroom in relation to the curriculum?

पाठ्यचर्या के संबंध में भाषा कक्षा के भीतर और कक्षा के बाहर किस प्रकार भिन्न रूप से कार्य करती है?

(1) Language serves the same purpose regardless of the setting. / परिवेश चाहे जो भी हो, भाषा एक ही उद्देश्य की पूर्ति करती है।

(2) Language outside the classroom is only used for entertainment. / कक्षा के बाहर भाषा का उपयोग केवल मनोरंजन के लिए किया जाता है।

(3) Inside the classroom, language is informal; outside, it is always formal. / कक्षा के भीतर भाषा अनौपचारिक होती है; बाहर यह सदैव औपचारिक होती है।

(4) **Language supports classroom learning and social communication. / भाषा कक्षा के अधिगम और सामाजिक संप्रेषण में सहायता करती है। ✔**

Q.123 When designing a peer tutoring program for a classroom, which method most effectively promotes mutual academic benefit for both tutors and tutees?

किसी कक्षा के लिए सहपाठी शिक्षण (पीयर ट्यूटरिंग) कार्यक्रम तैयार करते समय, कौन-सी विधि शिक्षण देने वाले और शिक्षण लेने वाले दोनों के लिए पारस्परिक शैक्षणिक लाभ को सबसे प्रभावी ढंग से बढ़ावा देती है?

(1) Focusing solely on group work / केवल समूह कार्य पर ध्यान केंद्रित करना

(2) Assigning only high achievers as tutors / केवल उच्च उपलब्धि वाले विद्यार्थियों को शिक्षण देने वाले के रूप में नियुक्त करना

(3) Rotating tutor and tutee roles regularly / शिक्षण देने वाले और शिक्षण लेने वाले की भूमिकाओं को नियमित रूप से बदलना ✔

(4) Using only fixed student pairs / केवल निश्चित विद्यार्थी जोड़ियों का उपयोग करना

Q.124 Which function does language serve outside the classroom environment?

कक्षा के वातावरण के बाहर भाषा कौन-सा कार्य करती है?

(1) Enabling communication, social interaction, and the sharing of ideas in everyday life. / दैनिक जीवन में संप्रेषण, सामाजिक अंतःक्रिया और विचारों के आदान-प्रदान को सक्षम बनाना। ✔

(2) Functioning solely as a tool for talking to oneself without involving others. / दूसरों को शामिल किए बिना केवल स्वयं से बात करने के एक साधन के रूप में कार्य करना।

(3) Serving primarily as a method for writing your feelings / मुख्य रूप से अपनी भावनाओं को लिखने की एक विधि के रूप में कार्य करना

(4) Preserving cultural heritage without supporting interaction or understanding among people / लोगों के बीच अंतःक्रिया या समझ को सहायता दिए बिना सांस्कृतिक विरासत को संरक्षित करना

Q.125 Which approach is a common method of a school's attempt to positively impact students' character by list of positive characteristics?

सकारात्मक विशेषताओं की सूची के द्वारा विद्यार्थियों के चरित्र पर सकारात्मक प्रभाव डालने के विद्यालय के प्रयास की एक सामान्य विधि कौन-सा उपागम है?

(1) Value statement approach / मूल्य कथन उपागम ✔

(2) Service learning / सेवा अधिगम

(3) Social and emotional learning / सामाजिक और संवेगात्मक अधिगम

(4) Cognitive approach / संज्ञानात्मक उपागम

Q.126 A teacher in a multilingual classroom encourages students to share personal experiences in their home languages while discussing a science topic. Which characteristic of pedagogy is BEST demonstrated in this scenario?

एक बहुभाषी कक्षा में एक शिक्षक विज्ञान के किसी विषय पर चर्चा करते समय विद्यार्थियों को अपनी घरेलू भाषाओं में व्यक्तिगत अनुभव साझा करने के लिए प्रोत्साहित करता है। इस परिदृश्य में शिक्षाशास्त्र की कौन-सी विशेषता सबसे अच्छी तरह प्रदर्शित होती है?

(1) Pedagogy is Goal-Oriented / शिक्षाशास्त्र लक्ष्य-उन्मुख है

(2) Pedagogy is Reflective / शिक्षाशास्त्र चिंतनशील है

(3) Pedagogy is Contextual / शिक्षाशास्त्र संदर्भगत है ✔

(4) Pedagogy is Value-Based / शिक्षाशास्त्र मूल्य-आधारित है

Q.127 In peer tutoring, the tutor and tutee are usually _____.

सहपाठी शिक्षण में, शिक्षण देने वाला और शिक्षण लेने वाला सामान्यतः _____ होते हैं।

(1) Learners grouped randomly without planning / बिना योजना के यादृच्छिक रूप से समूहित शिक्षार्थी

(2) Students and school administrators / विद्यार्थी और विद्यालय प्रशासक

(3) Students with varied levels of competence / दक्षता के विभिन्न स्तरों वाले विद्यार्थी ✔

(4) Teachers and students of the same class / एक ही कक्षा के शिक्षक और विद्यार्थी

Q.128 What is a characteristic of mindfulness that distinguishes it from relaxation exercises?

सचेतनता (माइंडफुलनेस) की वह कौन-सी विशेषता है जो इसे विश्रांति अभ्यासों से अलग करती है?

(1) Mindfulness involves active engagement with present experiences / सचेतनता में वर्तमान अनुभवों के साथ सक्रिय जुड़ाव शामिल होता है ✔

(2) Mindfulness is inherently religious and ritualistic / सचेतनता स्वाभाविक रूप से धार्मिक और कर्मकांडी है

(3) Mindfulness aims at achieving a state of no thoughts / सचेतनता का उद्देश्य विचारशून्यता की स्थिति प्राप्त करना है

(4) Mindfulness focuses exclusively on physical relaxation / सचेतनता विशेष रूप से शारीरिक विश्रांति पर केंद्रित होती है

Q.129 Which of the following statements best captures the role of literature in developing language skills among young learners?

निम्नलिखित में से कौन-सा कथन युवा शिक्षार्थियों में भाषा कौशलों के विकास में साहित्य की भूमिका को सबसे अच्छी तरह व्यक्त करता है?

(1) Literature provides exposure to rich vocabulary, diverse structures, and cultural settings that support comprehension and critical thinking skills. / साहित्य समृद्ध शब्दावली, विविध संरचनाओं और सांस्कृतिक परिवेशों से परिचय कराता है जो बोध और आलोचनात्मक चिंतन कौशलों में सहायक होते हैं। ✔

(2) Literature is primarily a source of entertainment and contributes only minimally to meaningful language growth and development. / साहित्य मुख्य रूप से मनोरंजन का एक स्रोत है और सार्थक भाषा वृद्धि और विकास में केवल न्यूनतम योगदान देता है।

(3) Literature is limited to grammar drills and memorization, offering little opportunity for contextual or creative language practice. / साहित्य व्याकरण अभ्यास और रटने तक सीमित है, जो संदर्भगत या सृजनात्मक भाषा अभ्यास के लिए बहुत कम अवसर प्रदान करता है।

(4) Literature can function as a complete substitute for guided instruction in reading, writing, and other essential language skills. / साहित्य पठन, लेखन और अन्य आवश्यक भाषा कौशलों में निर्देशित अनुदेशन के पूर्ण विकल्प के रूप में कार्य कर सकता है।

Q.130 Which of the following is considered the primary and basic social group in society?

निम्नलिखित में से किसे समाज का प्राथमिक और मूल सामाजिक समूह माना जाता है?

(1) Office / कार्यालय

(2) Family / परिवार ✔

(3) School / विद्यालय

(4) Club / क्लब

Q.131 A university designs a mandatory life skills course emphasizing selfless action (nishkama karma). Which traditional Indian self-direction goal is the course primarily applying?

एक विश्वविद्यालय निःस्वार्थ कर्म (निष्काम कर्म) पर बल देने वाला एक अनिवार्य जीवन कौशल पाठ्यक्रम तैयार करता है। यह पाठ्यक्रम मुख्य रूप से किस पारंपरिक भारतीय आत्म-निर्देशन लक्ष्य को लागू कर रहा है?

(1) Achieving individual financial security / व्यक्तिगत वित्तीय सुरक्षा प्राप्त करना

(2) Realizing collective community strength / सामूहिक सामुदायिक शक्ति को साकार करना

(3) Eliminating subjective inner conflicts / व्यक्तिपरक आंतरिक द्वंद्वों को समाप्त करना ✔

(4) Developing complex identity structures / जटिल पहचान संरचनाएँ विकसित करना

Q.132 A 5-year-old can form 5-word sentences, tell simple stories, and understand over 1,000 words. According to the key milestones, which supporting factor most likely contributed to this achievement?
एक 5 वर्षीय बच्चा 5 शब्दों के वाक्य बना सकता है, सरल कहानियाँ सुना सकता है और 1,000 से अधिक शब्दों को समझ सकता है। प्रमुख उपलब्धियों (माइलस्टोन) के अनुसार, किस सहायक कारक ने इस उपलब्धि में सबसे अधिक योगदान दिया होगा?

(1) Responsive talk, play, and access to books / प्रत्युत्तरात्मक बातचीत, खेल और पुस्तकों तक पहुँच ✔
(2) Formal grammar drills and rote learning / औपचारिक व्याकरण अभ्यास और रटकर सीखना
(3) Exclusive use of digital devices for reading / पढ़ने के लिए केवल डिजिटल उपकरणों का उपयोग
(4) Peer group discussions on advanced literature / उन्नत साहित्य पर साथी समूह चर्चाएँ

Q.133 According to MacSwan's minimalist approach, what constrains code-switching?
मैकस्वान के न्यूनतमवादी उपागम के अनुसार, कोड-स्विचिंग को क्या नियंत्रित (सीमित) करता है?

(1) Exclusive use of formal language / केवल औपचारिक भाषा का उपयोग
(2) Universal prohibition of mixing languages / भाषाओं के मिश्रण पर सार्वभौमिक प्रतिबंध
(3) The requirements of the mixed grammars / मिश्रित व्याकरणों की आवश्यकताएँ ✔
(4) Personal preference for one language / किसी एक भाषा के लिए व्यक्तिगत वरीयता

Q.134 While reviewing academic records, an administrator notices that all students are learning the same set of topics in mathematics across different schools. Which feature of the syllabus does this scenario highlight?
शैक्षणिक अभिलेखों की समीक्षा करते समय, एक प्रशासक देखता है कि विभिन्न विद्यालयों में सभी विद्यार्थी गणित में विषयों का एक ही समुच्चय सीख रहे हैं। यह परिदृश्य पाठ्यक्रम की किस विशेषता को उजागर करता है?

(1) Promoting holistic development through activities / गतिविधियों के माध्यम से समग्र विकास को बढ़ावा देना
(2) Maintaining uniform content standards for all students / सभी विद्यार्थियों के लिए एकसमान विषयवस्तु मानक बनाए रखना ✔
(3) Focusing on values and attitudes / मूल्यों और अभिवृत्तियों पर ध्यान केंद्रित करना
(4) Encouraging flexible learning experiences / लचीले अधिगम अनुभवों को प्रोत्साहित करना

Q.135 Which term best describes the shared beliefs and values of a group that influence teaching approaches?
कौन-सा पद किसी समूह के उन साझा विश्वासों और मूल्यों का सबसे अच्छा वर्णन करता है जो शिक्षण उपागमों को प्रभावित करते हैं?

(1) Classroom management / कक्षा प्रबंधन
(2) Curriculum design / पाठ्यचर्या अभिकल्पना
(3) Cultural world view / सांस्कृतिक विश्व-दृष्टि ✔
(4) Contemporary icon / समकालीन प्रतीक

Q.136 A local government is evaluating the long-term impact of education on its community. Using sociological insights, which evaluation method would best capture the broader effects of education on society?

एक स्थानीय सरकार अपने समुदाय पर शिक्षा के दीर्घकालिक प्रभाव का मूल्यांकन कर रही है।
समाजशास्त्रीय अंतर्दृष्टि का उपयोग करते हुए, कौन-सी मूल्यांकन विधि समाज पर शिक्षा के व्यापक प्रभावों को सबसे अच्छी तरह से दर्शाएगी?

(1) Reviewing improvements in school facilities and learning resources / विद्यालय सुविधाओं और अधिगम संसाधनों में सुधारों की समीक्षा करना

(2) Analyzing longitudinal trends in standardized academic performance / मानकीकृत शैक्षणिक प्रदर्शन में अनुदैर्ध्य प्रवृत्तियों का विश्लेषण करना

(3) Examining changes in social mobility and life opportunities across generations / पीढ़ियों के दौरान सामाजिक गतिशीलता और जीवन के अवसरों में परिवर्तनों की जाँच करना ✔

(4) Monitoring patterns of teacher attendance and workforce stability / शिक्षक उपस्थिति और कार्यबल स्थिरता के प्रतिरूपों की निगरानी करना

Q.137 A teacher notices a shy student repeatedly avoiding eye contact during formal class questions. Applying observation principles, what immediate action should the teacher prioritize?

एक शिक्षक देखता है कि एक शर्मीला विद्यार्थी कक्षा में औपचारिक प्रश्नों के दौरान बार-बार आँख मिलाने से बचता है। अवलोकन सिद्धांतों को लागू करते हुए, शिक्षक को किस तात्कालिक कार्रवाई को प्राथमिकता देनी चाहिए?

(1) Prompting immediate vocal responses / तत्काल मौखिक उत्तर के लिए प्रेरित करना

(2) Introducing immediate group work / तत्काल समूह कार्य शुरू करना

(3) Analyzing non-verbal communication cues / अशाब्दिक संप्रेषण संकेतों का विश्लेषण करना ✔

(4) Interpreting cues as inherent traits / संकेतों को अंतर्निहित गुणों के रूप में व्याख्यायित करना

Q.138 In a multilingual classroom, how can literature be used to support language development?

एक बहुभाषी कक्षा में, भाषा विकास में सहायता के लिए साहित्य का उपयोग कैसे किया जा सकता है?

(1) Choosing literature from a single cultural tradition exclusively. / केवल एक ही सांस्कृतिक परंपरा से साहित्य का चयन करना।

(2) Using only texts written in the national language for all students. / सभी विद्यार्थियों के लिए केवल राष्ट्रीय भाषा में लिखे गए पाठों का उपयोग करना।

(3) Selecting texts that reflect students' diverse linguistic backgrounds. / ऐसे पाठों का चयन करना जो विद्यार्थियों की विविध भाषाई पृष्ठभूमियों को प्रतिबिंबित करते हों। ✔

(4) Avoiding stories that include code-switching or translanguaging. / ऐसी कहानियों से बचना जिनमें कोड-स्विचिंग या ट्रांसलैंग्वेजिंग शामिल हो।

Q.139 What purpose does journal writing fulfil in the process of self-understanding?

आत्म-बोध की प्रक्रिया में डायरी (जर्नल) लेखन किस उद्देश्य की पूर्ति करता है?

(1) To prepare for competitive exams / प्रतियोगी परीक्षाओं की तैयारी करना

(2) To write creative stories for entertainment / मनोरंजन के लिए सृजनात्मक कहानियाँ लिखना

(3) To reflect on personal experiences and thoughts / व्यक्तिगत अनुभवों और विचारों पर चिंतन करना ✔

(4) To memorize facts and figures / तथ्यों और आँकड़ों को याद करना

Q.140 According to Piaget's theory, which stage is most relevant for understanding how children begin to grasp fundamental mathematical concepts such as number conservation and ordering?
पियाजे के सिद्धांत के अनुसार, यह समझने के लिए कि बच्चे संख्या संरक्षण और क्रमबद्धता जैसी मूलभूत गणितीय संकल्पनाओं को कैसे समझना शुरू करते हैं, कौन-सी अवस्था सबसे अधिक प्रासंगिक है?

(1) Formal operational stage / औपचारिक संक्रियात्मक अवस्था
(2) **Concrete operational stage / मूर्त संक्रियात्मक अवस्था ✔**
(3) Preoperational stage / पूर्व-संक्रियात्मक अवस्था
(4) Sensorimotor stage / संवेदी-गामक अवस्था

Q.141 Which of the following best explains why individuals differ in their learning?
निम्नलिखित में से कौन-सा सबसे अच्छी तरह स्पष्ट करता है कि व्यक्ति अपने अधिगम में भिन्न क्यों होते हैं?

(1) Learning depends solely on the learner's intelligence. / अधिगम केवल शिक्षार्थी की बुद्धि पर निर्भर करता है।
(2) **Learning is influenced by both personal and environmental factors. / अधिगम व्यक्तिगत और पर्यावरणीय दोनों कारकों से प्रभावित होता है। ✔**
(3) Learning is entirely determined by the curriculum. / अधिगम पूर्णतः पाठ्यचर्या द्वारा निर्धारित होता है।
(4) Learning differences are caused only by the teaching methods. / अधिगम में भिन्नताएँ केवल शिक्षण विधियों के कारण होती हैं।

Q.142 After a student incorrectly adds 5 + 3 as 9, the teacher discusses the student's reasoning and encourages exploration of the error. According to Piaget, what learning mechanism does this practice support?
एक विद्यार्थी द्वारा 5 + 3 को गलती से 9 जोड़ने के बाद, शिक्षक विद्यार्थी के तर्क पर चर्चा करता है और त्रुटि की खोजबीन के लिए प्रोत्साहित करता है। पियाजे के अनुसार, यह अभ्यास किस अधिगम क्रियाविधि का समर्थन करता है?

(1) **Equilibration through self-regulation and reflection / स्व-नियमन और चिंतन के माध्यम से साम्यधारण (इक्विलिब्रेशन) ✔**
(2) Direct instruction for immediate correction / तत्काल सुधार के लिए प्रत्यक्ष अनुदेशन
(3) Mastery of hypothetical-deductive reasoning / परिकल्पनात्मक-निगमनात्मक तर्क में निपुणता
(4) Adoption of rote memorization strategies / रटने की रणनीतियों को अपनाना

Q.143 Which type of play is characterized by active interaction and organized activities among children aged five to six?
पाँच से छह वर्ष की आयु के बच्चों के बीच सक्रिय अंतःक्रिया और संगठित गतिविधियाँ किस प्रकार के खेल की विशेषता हैं?

(1) Parallel play / समानांतर खेल
(2) Onlooker play / दर्शक खेल
(3) **Cooperative play / सहयोगात्मक खेल ✔**
(4) Associative play / साहचर्य खेल

Q.144 Which sentence correctly follows the rules of subject-verb agreement?
कौन-सा वाक्य कर्ता-क्रिया अन्विति (subject-verb agreement) के नियमों का सही ढंग से पालन करता है?

(1) He go to college every morning.
(2) Students walks to college every morning.
(3) **She walks to college every morning. ✔**
(4) They walks to college every morning.

Q.145 Which option is an example of using correct grammar but inappropriate language in a classroom setting?

कौन-सा विकल्प कक्षा के परिवेश में सही व्याकरण किंतु अनुपयुक्त भाषा के प्रयोग का उदाहरण है?

(1) Would you mind repeating that?

(2) Could you please explain that again?

(3) Dude, could you explain that again? ✔

(4) May I ask for clarification?

Q.146 In a co-educational school, a male teacher feels uncomfortable discussing attendance issues privately with female students, leading to less support for them.
Which aspect of teacher identity is influencing this classroom dynamic?

एक सह-शिक्षा विद्यालय में, एक पुरुष शिक्षक छात्राओं के साथ उपस्थिति संबंधी मुद्दों पर अकेले में चर्चा करने में असहज महसूस करता है, जिसके कारण उन्हें कम सहायता मिलती है।
शिक्षक पहचान का कौन-सा पहलू कक्षा की इस गतिशीलता को प्रभावित कर रहा है?

(1) Personal gender identity shaping interactions / अंतःक्रियाओं को आकार देने वाली व्यक्तिगत लैंगिक पहचान ✔

(2) Curriculum content provided by textbooks / पाठ्यपुस्तकों द्वारा प्रदान की गई पाठ्यचर्या विषयवस्तु

(3) Peer influence among students / विद्यार्थियों के बीच साथियों का प्रभाव

(4) Strict adherence to classroom rules / कक्षा के नियमों का कठोरता से पालन

Q.147 Read the Assertion (A) and Reason (R) given below and choose the correct option.
Assertion (A): Understanding place value is essential for developing arithmetic skills in young learners.
Reason (R): Place value helps students distinguish between tens and units when solving addition problems.

नीचे दिए गए अभिकथन (A) और कारण (R) को पढ़ें और सही विकल्प का चयन करें।
अभिकथन (A): युवा शिक्षार्थियों में अंकगणितीय कौशल विकसित करने के लिए स्थानीय मान को समझना आवश्यक है।
कारण (R): स्थानीय मान, जोड़ के प्रश्नों को हल करते समय विद्यार्थियों को दहाई और इकाई के बीच अंतर करने में सहायता करता है।

(1) Both A and R are incorrect. / A और R दोनों गलत हैं।

(2) A is correct, but R is incorrect. / A सही है, किंतु R गलत है।

(3) Both A and R are correct, and R is the correct explanation of A. / A और R दोनों सही हैं, और R, A की सही व्याख्या है। ✔

(4) Both A and R are correct, but R is not the correct explanation of A. / A और R दोनों सही हैं, किंतु R, A की सही व्याख्या नहीं है।

Q.148 What does 'school effectiveness' primarily refer to?

'विद्यालय प्रभावशीलता' का मुख्य रूप से क्या अर्थ है?

(1) Student enrollment / विद्यार्थी नामांकन

(2) Goal achievement / लक्ष्य प्राप्ति ✔

(3) Physical infrastructure / भौतिक अवसंरचना

(4) Teacher salary / शिक्षक का वेतन

Q.149 When learners display curiosity toward a topic, they engage more actively and achieve a deeper understanding. This illustrates the importance of:

जब शिक्षार्थी किसी विषय के प्रति जिज्ञासा प्रदर्शित करते हैं, तो वे अधिक सक्रिय रूप से संलग्न होते हैं और गहरी समझ प्राप्त करते हैं। यह किसके महत्व को दर्शाता है?

(1) Enforcing classroom rules / कक्षा के नियमों को लागू करना

(2) **Fostering learner interest / शिक्षार्थी की रुचि को बढ़ावा देना ✔**

(3) Using punitive measures / दंडात्मक उपायों का उपयोग करना

(4) Maintaining behavioural discipline / व्यवहारगत अनुशासन बनाए रखना

Q.150 Which of the following alternatives in education emphasizes on learning from within and complete freedom of choice of mode of learning in early years?

शिक्षा के निम्नलिखित विकल्पों में से कौन-सा प्रारंभिक वर्षों में भीतर से सीखने और अधिगम की विधि के चयन की पूर्ण स्वतंत्रता पर बल देता है?

(1) **Unschooling / अनस्कूलिंग ✔**

(2) Waldorf method / वाल्डोर्फ पद्धति

(3) Democratic schooling / लोकतांत्रिक विद्यालयी शिक्षा

(4) Montessori method / मॉन्टेसरी पद्धति

Q.151 Which of the following is an essential psychological attitude for a good facilitator in education?

निम्नलिखित में से कौन-सी शिक्षा में एक अच्छे सुगमकर्ता के लिए एक आवश्यक मनोवैज्ञानिक अभिवृत्ति है?

(1) Being indifferent / उदासीन होना

(2) Being impatient / अधीर होना

(3) Being strict / कठोर होना

(4) **Being open-minded / खुले विचारों वाला होना ✔**

Q.152 In educational discourse, the conventional concept of 'schooling' is fundamentally defined as a:

शैक्षिक विमर्श में, 'विद्यालयी शिक्षा' (schooling) की पारंपरिक संकल्पना को मूल रूप से किस रूप में परिभाषित किया जाता है?

(1) **Structured learning process / संरचित अधिगम प्रक्रिया ✔**

(2) Social environment / सामाजिक वातावरण

(3) Community resource center / सामुदायिक संसाधन केंद्र

(4) Unregulated open forum / अनियमित खुला मंच

Q.153 What is an important role of principals as pedagogic leaders?

शैक्षणिक नेतृत्वकर्ता के रूप में प्रधानाचार्यों की एक महत्वपूर्ण भूमिका क्या है?

(1) **Empowering teachers with professional responsibility and supportive judgments / शिक्षकों को व्यावसायिक उत्तरदायित्व और सहायक निर्णयों के साथ सशक्त बनाना ✔**

(2) Designing or determining the national curriculum independently / स्वतंत्र रूप से राष्ट्रीय पाठ्यचर्या की अभिकल्पना या निर्धारण करना

(3) Focusing solely on administrative duties / केवल प्रशासनिक कर्तव्यों पर ध्यान केंद्रित करना

(4) Directly managing and controlling all classroom instruction / समस्त कक्षा अनुदेशन का प्रत्यक्ष प्रबंधन और नियंत्रण करना

Q.154 A student fails an exam and claims the test was unfair, refusing to accept their own lack of preparation. Which defence mechanism does this illustrate?

एक विद्यार्थी परीक्षा में अनुत्तीर्ण हो जाता है और दावा करता है कि परीक्षा अनुचित थी, तथा अपनी तैयारी की कमी को स्वीकार करने से इनकार करता है। यह किस रक्षा युक्ति को दर्शाता है?

(1) Denial / इनकार (Denial)

(2) Sublimation / उदात्तीकरण (Sublimation)

(3) Rationalization / युक्तिकरण (Rationalization) ✔

(4) Projection / प्रक्षेपण (Projection)

Q.155 In a reflective session, Mr. Singh notices that some students are hesitant to express their opinions during debates. He decides to adopt storytelling and exploratory questioning in his teaching. What facilitation skills is Mr. Singh primarily utilising to foster engagement?

एक चिंतन सत्र में, श्री सिंह देखते हैं कि कुछ विद्यार्थी वाद-विवाद के दौरान अपनी राय व्यक्त करने में झिझकते हैं। वे अपने शिक्षण में कहानी-कथन और अन्वेषणात्मक प्रश्न पूछने को अपनाने का निर्णय लेते हैं। संलग्नता को बढ़ावा देने के लिए श्री सिंह मुख्य रूप से किन सुगमीकरण कौशलों का उपयोग कर रहे हैं?

(1) Strict classroom management and discipline / कठोर कक्षा प्रबंधन और अनुशासन

(2) Assigning repetitive worksheet tasks / दोहराव वाले कार्यपत्रक कार्य देना

(3) Active listening and exploratory questioning / सक्रिय श्रवण और अन्वेषणात्मक प्रश्न पूछना ✔

(4) Emphasizing rote memorization techniques / रटने की तकनीकों पर बल देना

Q.156 After a challenging term with mixed student results, Mr. Singh takes time to analyze his teaching methods and seeks feedback from students to improve his practice.
Which aspect of teacher identity is he most demonstrating?

मिश्रित विद्यार्थी परिणामों वाले एक चुनौतीपूर्ण सत्र के बाद, श्री सिंह अपनी शिक्षण विधियों का विश्लेषण करने के लिए समय निकालते हैं और अपने अभ्यास में सुधार के लिए विद्यार्थियों से प्रतिपुष्टि माँगते हैं।
वे शिक्षक पहचान के किस पहलू को सबसे अधिक प्रदर्शित कर रहे हैं?

(1) Learner-centred and inclusive / शिक्षार्थी-केंद्रित और समावेशी

(2) Reflective practitioner / चिंतनशील व्यवसायी ✔

(3) Agent of change / परिवर्तन का अभिकर्ता

(4) Democratic and collaborative / लोकतांत्रिक और सहयोगात्मक

Q.157 Which sentence is grammatically correct and contextually appropriate for a business email?

कौन-सा वाक्य एक व्यावसायिक ईमेल के लिए व्याकरणिक रूप से सही और संदर्भ की दृष्टि से उपयुक्त है?

(1) I wants to discuss the project details with you tomorrow.

(2) I would like to discuss the project details with you tomorrow. ✔

(3) I want discuss project details with you tomorrow.

(4) I like discussing the project details with you tomorrow.

Q.158 What is a primary responsibility of a teacher in a school setting?

विद्यालयी परिवेश में एक शिक्षक का प्राथमिक उत्तरदायित्व क्या है?

(1) Facilitating learning / अधिगम को सुगम बनाना ✔

(2) Publishing textbooks / पाठ्यपुस्तकें प्रकाशित करना

(3) Managing school finances / विद्यालय के वित्त का प्रबंधन करना

(4) Designing building layouts / भवन के नक्शे तैयार करना

Q.159 Which stage involves the ability to reason using pure symbols without perceptive data?
किस अवस्था में प्रत्यक्ष (इंद्रियगोचर) आँकड़ों के बिना शुद्ध प्रतीकों का उपयोग करके तर्क करने की क्षमता शामिल होती है?

(1) Sensorimotor / संवेदी-गामक
(2) Preoperational / पूर्व-संक्रियात्मक
(3) **Formal Operational / औपचारिक संक्रियात्मक ✔**
(4) Concrete Operational / मूर्त संक्रियात्मक

Q.160 Which factor best supports the status of English as a global language?
कौन-सा कारक एक वैश्विक भाषा के रूप में अंग्रेजी की स्थिति का सबसे अच्छा समर्थन करता है?

(1) **Its wide use in global trade and technology. / वैश्विक व्यापार और प्रौद्योगिकी में इसका व्यापक उपयोग। ✔**
(2) Its complex grammar and extensive vocabulary. / इसका जटिल व्याकरण और व्यापक शब्दावली।
(3) Its use is limited to native English nations. / इसका उपयोग मूल अंग्रेजी-भाषी देशों तक सीमित है।
(4) Its ancient origin in early European history. / प्रारंभिक यूरोपीय इतिहास में इसकी प्राचीन उत्पत्ति।

Q.161 Which is the first step in effective lesson planning according to the principles of lesson planning?
पाठ योजना के सिद्धांतों के अनुसार, प्रभावी पाठ योजना का पहला चरण कौन-सा है?

(1) Selecting teaching aids / शिक्षण सहायक सामग्री का चयन करना
(2) Deciding assessment methods / आकलन विधियों का निर्धारण करना
(3) Preparing student activities / विद्यार्थी गतिविधियाँ तैयार करना
(4) **Setting clear objectives / स्पष्ट उद्देश्य निर्धारित करना ✔**

Q.162 What is a primary significance of Environmental Studies in the context of pedagogy?
शिक्षाशास्त्र के संदर्भ में पर्यावरण अध्ययन का एक प्राथमिक महत्व क्या है?

(1) It centers solely on historical facts about nature. / यह केवल प्रकृति के बारे में ऐतिहासिक तथ्यों पर केंद्रित है।
(2) **It builds environmental awareness and responsibility. / यह पर्यावरणीय जागरूकता और उत्तरदायित्व का निर्माण करता है। ✔**
(3) It promotes economic growth through industrialization. / यह औद्योगीकरण के माध्यम से आर्थिक विकास को बढ़ावा देता है।
(4) It only provides technical skills for laboratory analysis. / यह केवल प्रयोगशाला विश्लेषण के लिए तकनीकी कौशल प्रदान करता है।

Q.163 What is the main focus of the Grammar Translation Method in teaching English?
अंग्रेजी शिक्षण में व्याकरण-अनुवाद विधि का मुख्य केंद्र-बिंदु क्या है?

(1) Encouraging students to speak English fluently in everyday situations / विद्यार्थियों को दैनिक परिस्थितियों में धाराप्रवाह अंग्रेजी बोलने के लिए प्रोत्साहित करना
(2) **Translating sentences and learning grammar rules using native language / मातृभाषा का उपयोग करके वाक्यों का अनुवाद करना और व्याकरण के नियम सीखना ✔**
(3) Using games and interactive activities to teach vocabulary and grammar / शब्दावली और व्याकरण सिखाने के लिए खेलों और अंतःक्रियात्मक गतिविधियों का उपयोग करना
(4) Integrating multimedia tools for listening and reading practice effectively / श्रवण और पठन अभ्यास के लिए मल्टीमीडिया उपकरणों को प्रभावी ढंग से एकीकृत करना

QuickSarkari.com | WhatsApp Channel | Telegram: t.me/quick_sarkari

Q.164 English is placed in the school curriculum mainly because it:

अंग्रेजी को विद्यालयी पाठ्यचर्या में मुख्य रूप से इसलिए रखा गया है क्योंकि यह:

(1) Replaces all other languages in schooling / विद्यालयी शिक्षा में अन्य सभी भाषाओं का स्थान ले लेती है

(2) Is culturally neutral and context-free / सांस्कृतिक रूप से तटस्थ और संदर्भ-मुक्त है

(3) Serves as a link language / एक संपर्क भाषा के रूप में कार्य करती है ✔

(4) Functions only as an examination subject / केवल एक परीक्षा विषय के रूप में कार्य करती है

Q.165 A teacher instructs students to submit the edited and final version of a report and awards 90% of the grade based strictly on grammatical errors and spelling accuracy. This assessment philosophy primarily aligns with viewing writing as a:

एक शिक्षक विद्यार्थियों को एक रिपोर्ट का संपादित और अंतिम संस्करण जमा करने का निर्देश देता है और ग्रेड का 90% पूरी तरह से व्याकरणिक त्रुटियों और वर्तनी की शुद्धता के आधार पर देता है।

यह आकलन दर्शन मुख्य रूप से लेखन को किस रूप में देखने के अनुरूप है?

(1) Critical cognitive process. / एक आलोचनात्मक संज्ञानात्मक प्रक्रिया।

(2) Holistic communication objective. / एक समग्र संप्रेषण उद्देश्य।

(3) Discourse construction task. / एक प्रवचन (डिस्कोर्स) निर्माण कार्य।

(4) Mechanical skill and product. / एक यांत्रिक कौशल और उत्पाद। ✔

Q.166 Which teaching approach in Environmental Studies emphasizes connecting different subjects to provide a holistic understanding?

पर्यावरण अध्ययन में कौन-सा शिक्षण उपागम समग्र समझ प्रदान करने के लिए विभिन्न विषयों को जोड़ने पर बल देता है?

(1) Inclusive approach / समावेशी उपागम

(2) Conceptual process approach / संकल्पनात्मक प्रक्रिया उपागम

(3) Scientific approach / वैज्ञानिक उपागम

(4) Integrated approach / एकीकृत उपागम ✔

Q.167 A city plans to develop a new park by integrating local culture, community needs, and natural resources. Which approach to environmental studies does this best illustrate?

एक शहर स्थानीय संस्कृति, सामुदायिक आवश्यकताओं और प्राकृतिक संसाधनों को एकीकृत करके एक नया पार्क विकसित करने की योजना बनाता है। यह पर्यावरण अध्ययन के किस उपागम को सबसे अच्छी तरह दर्शाता है?

(1) Systems approach / तंत्र उपागम

(2) Teleological approach / उद्देश्यवादी (टेलीओलॉजिकल) उपागम

(3) Environmental deterministic approach / पर्यावरणीय नियतिवादी उपागम

(4) Holistic approach / समग्र उपागम ✔

Q.168 In Riverdale School, the administration wishes to measure school effectiveness beyond student test scores. Which approach best reflects comprehensive measurement as described in the context?

रिवरडेल स्कूल में, प्रशासन विद्यार्थियों के परीक्षा अंकों से आगे बढ़कर विद्यालय प्रभावशीलता को मापना चाहता है। संदर्भ में वर्णित व्यापक मापन को कौन-सा उपागम सबसे अच्छी तरह प्रतिबिंबित करता है?

(1) Focusing solely on annual board examination results / केवल वार्षिक बोर्ड परीक्षा परिणामों पर ध्यान केंद्रित करना

(2) Increasing the number of summative tests each year / प्रत्येक वर्ष योगात्मक परीक्षणों की संख्या बढ़ाना

(3) Ranking students publicly based on exam marks / परीक्षा अंकों के आधार पर विद्यार्थियों को सार्वजनिक रूप से रैंक देना

(4) Utilizing portfolios, peer feedback, and value-added models / पोर्टफोलियो, सहपाठी प्रतिपुष्टि और मूल्य-वर्धित मॉडलों का उपयोग करना ✔

Q.169 A school syllabus removes separate Science and Social Science sections and organises lessons under themes like "Water" and "Fuel" from daily life. This mainly shows a focus on:

एक विद्यालयी पाठ्यक्रम विज्ञान और सामाजिक विज्ञान के अलग-अलग खंडों को हटा देता है और पाठों को दैनिक जीवन से जुड़े "जल" और "ईंधन" जैसे विषयों (थीम) के अंतर्गत व्यवस्थित करता है। यह मुख्य रूप से किस पर ध्यान केंद्रित करने को दर्शाता है?

(1) Increasing classroom periods / कक्षा के कालांशों को बढ़ाना

(2) Listing separate subject facts / अलग-अलग विषयों के तथ्यों को सूचीबद्ध करना

(3) Writing more exam questions / अधिक परीक्षा प्रश्न लिखना

(4) Holistic content integration / समग्र विषयवस्तु एकीकरण ✔

Q.170 Carroll College's approach to education emphasizes engaging many perspectives. What outcome does this support, based on the mission-centered values and strategic plan?

कैरोल कॉलेज का शिक्षा के प्रति उपागम अनेक दृष्टिकोणों को शामिल करने पर बल देता है। मिशन-केंद्रित मूल्यों और रणनीतिक योजना के आधार पर, यह किस परिणाम का समर्थन करता है?

(1) An environment closed to outside ideas / बाहरी विचारों के लिए बंद वातावरण

(2) A focus on competition over cooperation / सहयोग की अपेक्षा प्रतिस्पर्धा पर ध्यान

(3) A culture of empathy and authentic dialogue / समानुभूति और प्रामाणिक संवाद की संस्कृति ✔

(4) A separation of faith and reason / आस्था और तर्क का पृथक्करण

Q.171 Which micro teaching skill is most directly associated with giving clear and precise instructions to students during a lesson?

पाठ के दौरान विद्यार्थियों को स्पष्ट और सटीक निर्देश देने से कौन-सा सूक्ष्म शिक्षण कौशल सबसे प्रत्यक्ष रूप से संबंधित है?

(1) Skill of reinforcement / पुनर्बलन कौशल

(2) Skill of explaining / व्याख्या कौशल ✔

(3) Skill of questioning / प्रश्न पूछने का कौशल

(4) Skill of stimulus variation / उद्दीपन परिवर्तन कौशल

Q.172 Lesson planning is primarily executed during which phase of teaching?

पाठ योजना मुख्य रूप से शिक्षण की किस अवस्था के दौरान क्रियान्वित की जाती है?

(1) Evaluative phase / मूल्यांकन अवस्था

(2) Interactive phase / अंतःक्रियात्मक अवस्था

(3) Pre-active phase / पूर्व-क्रियात्मक अवस्था ✔

(4) Post-active phase / उत्तर-क्रियात्मक अवस्था

Q.173 Which of the following uses different leadership styles depending on the situation and the type of employee that is being supervised?

निम्नलिखित में से कौन-सा परिस्थिति और पर्यवेक्षित किए जा रहे कर्मचारी के प्रकार के आधार पर विभिन्न नेतृत्व शैलियों का उपयोग करता है?

(1) A leadership approach that modifies behavior according to context and follower capability / एक नेतृत्व उपागम जो संदर्भ और अनुयायी की क्षमता के अनुसार व्यवहार को संशोधित करता है ✔

(2) A leadership approach centered on meeting employees' personal needs first / एक नेतृत्व उपागम जो सबसे पहले कर्मचारियों की व्यक्तिगत आवश्यकताओं को पूरा करने पर केंद्रित है

(3) A leadership approach focused primarily on relationship-building and morale / एक नेतृत्व उपागम जो मुख्य रूप से संबंध-निर्माण और मनोबल पर केंद्रित है

(4) A leadership approach that prioritizes long-term organizational culture / एक नेतृत्व उपागम जो दीर्घकालिक संगठनात्मक संस्कृति को प्राथमिकता देता है

Q.174 Social justice is mainly concerned with _____.

सामाजिक न्याय मुख्य रूप से _____ से संबंधित है।

(1) Uniform application of punishments / दंडों का एकसमान प्रयोग

(2) Fair distribution of opportunities / अवसरों का न्यायसंगत वितरण ✔

(3) Strict enforcement of criminal laws / आपराधिक कानूनों का कठोर प्रवर्तन

(4) Elimination of all social conflicts / सभी सामाजिक संघर्षों का उन्मूलन

Q.175 A principal wants to foster a culture of continuous professional development among teachers. Which action most effectively reflects the role of a pedagogical leader in this context?

एक प्रधानाचार्य शिक्षकों के बीच निरंतर व्यावसायिक विकास की संस्कृति को बढ़ावा देना चाहता है। इस संदर्भ में कौन-सी कार्रवाई एक शैक्षणिक नेतृत्वकर्ता की भूमिका को सबसे प्रभावी ढंग से प्रतिबिंबित करती है?

(1) Organizing peer observation sessions with reflective discussions / चिंतनशील चर्चाओं के साथ सहपाठी अवलोकन सत्रों का आयोजन करना ✔

(2) Assigning external trainers to conduct isolated workshops / अलग-थलग कार्यशालाएँ आयोजित करने के लिए बाहरी प्रशिक्षकों को नियुक्त करना

(3) Focusing professional development only on administrative skills / व्यावसायिक विकास को केवल प्रशासनिक कौशलों पर केंद्रित करना

(4) Purchasing professional development materials for the staffroom / स्टाफ़-रूम के लिए व्यावसायिक विकास सामग्री खरीदना

Q.176 An educator is designing a lesson plan that incorporates Bloom's Taxonomy to foster higher-order thinking and aligns with the principle of flexibility. Which step is crucial to ensure adaptability in instructional delivery?

एक शिक्षक ऐसी पाठ योजना तैयार कर रहा है जो उच्च-स्तरीय चिंतन को बढ़ावा देने के लिए ब्लूम की वर्गिकी (टैक्सोनॉमी) को शामिल करती है और लचीलेपन के सिद्धांत के अनुरूप है। अनुदेशात्मक प्रस्तुति में अनुकूलनशीलता सुनिश्चित करने के लिए कौन-सा चरण महत्वपूर्ण है?

(1) Setting fixed objectives for all learners / सभी शिक्षार्थियों के लिए निश्चित उद्देश्य निर्धारित करना

(2) Relying solely on one assessment method / केवल एक आकलन विधि पर निर्भर रहना

(3) Following a rigid instructional sequence / एक कठोर अनुदेशात्मक क्रम का पालन करना

(4) Providing alternate strategies for diverse needs / विविध आवश्यकताओं के लिए वैकल्पिक रणनीतियाँ प्रदान करना ✔

Q.177 Which of the following best explains a key principle behind integrating English language instruction in a postgraduate curriculum?

निम्नलिखित में से कौन-सा स्नातकोत्तर पाठ्यचर्या में अंग्रेजी भाषा अनुदेशन को एकीकृत करने के पीछे के एक प्रमुख सिद्धांत को सबसे अच्छी तरह स्पष्ट करता है?

(1) It focuses mainly on grammar development for advanced students. / यह मुख्य रूप से उन्नत विद्यार्थियों के लिए व्याकरण विकास पर केंद्रित है।

(2) It prioritizes literature appreciation over functional language use. / यह प्रकार्यात्मक भाषा उपयोग की अपेक्षा साहित्य रसास्वादन को प्राथमिकता देता है।

(3) It supports academic discourse and critical thinking across disciplines. / यह विभिन्न विषयों में शैक्षणिक विमर्श और आलोचनात्मक चिंतन का समर्थन करता है। ✔

(4) It emphasizes rote memorization of vocabulary lists. / यह शब्दावली सूचियों को रटने पर बल देता है।

Q.178 Which type of language assessment is most appropriate for evaluating a learner's ability to organize ideas coherently and express them in written form?

किसी शिक्षार्थी की विचारों को सुसंगत रूप से व्यवस्थित करने और उन्हें लिखित रूप में व्यक्त करने की क्षमता का मूल्यांकन करने के लिए किस प्रकार का भाषा आकलन सबसे उपयुक्त है?

(1) Oral assessment / मौखिक आकलन

(2) Writing assessment / लेखन आकलन ✔

(3) Listening assessment / श्रवण आकलन

(4) Reading assessment / पठन आकलन

Q.179 How are social sciences and social studies related?

सामाजिक विज्ञान और सामाजिक अध्ययन किस प्रकार संबंधित हैं?

(1) Social sciences are only taught at the elementary school level / सामाजिक विज्ञान केवल प्रारंभिक विद्यालय स्तर पर पढ़ाए जाते हैं

(2) Social studies and social sciences are unrelated disciplines / सामाजिक अध्ययन और सामाजिक विज्ञान असंबंधित विषय हैं

(3) Social studies originated from social sciences for school curriculum / सामाजिक अध्ययन की उत्पत्ति विद्यालयी पाठ्यचर्या के लिए सामाजिक विज्ञानों से हुई ✔

(4) Social sciences are a subset of social studies at universities / विश्वविद्यालयों में सामाजिक विज्ञान, सामाजिक अध्ययन का एक उपसमुच्चय हैं

Q.180 A school ensures that every child gets equal learning opportunities regardless of background. This practice promotes:

एक विद्यालय यह सुनिश्चित करता है कि प्रत्येक बच्चे को पृष्ठभूमि की परवाह किए बिना समान अधिगम अवसर मिलें। यह प्रथा किसे बढ़ावा देती है?

(1) Preference for high achievers / उच्च उपलब्धि वालों को वरीयता

(2) Grouping by social background / सामाजिक पृष्ठभूमि के आधार पर समूह बनाना

(3) Classroom competition / कक्षा में प्रतिस्पर्धा

(4) Values of equality and justice / समानता और न्याय के मूल्य ✔

Q.181 How does the nature of mathematics as a discipline influence its perceived importance in education?

एक विषय के रूप में गणित की प्रकृति शिक्षा में इसके माने गए महत्व को किस प्रकार प्रभावित करती है?

(1) Mathematics minimizes cooperative learning in favor of individual drill practice / गणित व्यक्तिगत ड्रिल अभ्यास के पक्ष में सहयोगात्मक अधिगम को न्यूनतम कर देता है

(2) Mathematics is mainly concerned with chronological facts and descriptive narratives / गणित मुख्य रूप से कालानुक्रमिक तथ्यों और वर्णनात्मक आख्यानों से संबंधित है

(3) Mathematics primarily stresses rote procedural recall rather than creative thinking / गणित मुख्य रूप से सृजनात्मक चिंतन के बजाय रटकर प्रक्रियात्मक स्मरण पर बल देता है

(4) Mathematics cultivates analytical reasoning and systematic problem solving / गणित विश्लेषणात्मक तर्क और व्यवस्थित समस्या समाधान को विकसित करता है ✔

Q.182 Which of the following best explains the nature of mathematics?

निम्नलिखित में से कौन-सा गणित की प्रकृति को सबसे अच्छी तरह स्पष्ट करता है?

(1) It deals only with theoretical proofs with no practical implication / यह केवल सैद्धांतिक उपपत्तियों से संबंधित है जिनका कोई व्यावहारिक निहितार्थ नहीं है

(2) It is limited only to numerical calculations and assumptions / यह केवल संख्यात्मक गणनाओं और मान्यताओं तक सीमित है

(3) It develops from concrete experiences to abstract concepts / यह मूर्त अनुभवों से अमूर्त संकल्पनाओं की ओर विकसित होता है ✔

(4) It is unrelated to daily life activities and is used in classroom only / यह दैनिक जीवन की गतिविधियों से असंबंधित है और केवल कक्षा में उपयोग किया जाता है

Q.183 Which of the following is an example of recreational mathematics?

निम्नलिखित में से कौन-सा मनोरंजक गणित का एक उदाहरण है?

(1) Memorizing multiplication tables / पहाड़े याद करना

(2) Solving puzzles like Sudoku / सुडोकू जैसी पहेलियाँ हल करना ✔

(3) Practicing handwriting / सुलेख का अभ्यास करना

(4) Reading a history book / इतिहास की पुस्तक पढ़ना

Q.184 Which statement reflects a key concept of the nature of science as taught in science education?

विज्ञान शिक्षा में पढ़ाई जाने वाली विज्ञान की प्रकृति की एक प्रमुख संकल्पना को कौन-सा कथन प्रतिबिंबित करता है?

(1) Scientific knowledge is subject to change with new evidence / वैज्ञानिक ज्ञान नए साक्ष्यों के साथ परिवर्तनशील होता है ✔

(2) Science never changes once established / एक बार स्थापित हो जाने के बाद विज्ञान कभी नहीं बदलता

(3) Science education avoids discussing new discoveries / विज्ञान शिक्षा नई खोजों पर चर्चा करने से बचती है

(4) Science is based on unchangeable facts / विज्ञान अपरिवर्तनीय तथ्यों पर आधारित है

Q.185 A private school reserves 25% of its seats for children from economically weaker sections and children with special needs, as per government mandate. This is an example of which inclusion strategy in Indian education?

एक निजी विद्यालय सरकारी आदेश के अनुसार अपनी 25% सीटें आर्थिक रूप से कमजोर वर्गों के बच्चों और विशेष आवश्यकता वाले बच्चों के लिए आरक्षित करता है। यह भारतीय शिक्षा में किस समावेशन रणनीति का उदाहरण है?

(1) Provision of scholarships based on academic performance / शैक्षणिक प्रदर्शन के आधार पर छात्रवृत्ति का प्रावधान

(2) Enforcement of RTE-mandated private school reservations / निजी विद्यालयों में RTE-अनिवार्य आरक्षण का प्रवर्तन ✔

(3) Adoption of multilingual classroom instruction / बहुभाषी कक्षा अनुदेशन को अपनाना

(4) Implementation of flexible curricula for diverse learners / विविध शिक्षार्थियों के लिए लचीली पाठ्यचर्या का कार्यान्वयन

Q.186 For a research project, graduate students design a rubric to assess peers' intercultural communication. This task best exemplifies which aspect of Bloom's domains?

एक शोध परियोजना के लिए, स्नातक विद्यार्थी अपने साथियों के अंतर-सांस्कृतिक संप्रेषण का आकलन करने के लिए एक रूब्रिक तैयार करते हैं। यह कार्य ब्लूम के क्षेत्रों (डोमेन) के किस पहलू का सबसे अच्छा उदाहरण है?

(1) Receiving in the affective domain / भावात्मक क्षेत्र में ग्रहण करना

(2) Applying knowledge in the cognitive domain / संज्ञानात्मक क्षेत्र में ज्ञान का अनुप्रयोग

(3) Applying evaluation in the cognitive domain / संज्ञानात्मक क्षेत्र में मूल्यांकन का अनुप्रयोग ✔

(4) Creating in the psychomotor domain / मनोगत्यात्मक क्षेत्र में सृजन करना

Q.187 Which approach best supports working towards gender equality in schools?
विद्यालयों में लैंगिक समानता की दिशा में कार्य करने में कौन-सा उपागम सबसे अधिक सहायक है?

(1) Assigning tasks based on gender roles / लैंगिक भूमिकाओं के आधार पर कार्य सौंपना
(2) Ignoring gender differences in classroom / कक्षा में लैंगिक भिन्नताओं की उपेक्षा करना
(3) **Implementing gender-sensitive policies and practices / जेंडर-संवेदनशील नीतियों और प्रथाओं को लागू करना ✔**
(4) Promoting single-gender classrooms exclusively / केवल एकल-लिंग कक्षाओं को बढ़ावा देना

Q.188 A teacher uses group activities where children from diverse backgrounds work together. This helps in:
एक शिक्षक सामूहिक गतिविधियों का उपयोग करता है जिनमें विविध पृष्ठभूमियों के बच्चे एक साथ कार्य करते हैं। यह किसमें सहायता करता है?

(1) Creating barriers / बाधाएँ उत्पन्न करने में
(2) Avoiding diversity / विविधता से बचने में
(3) **Addressing inequality in classrooms / कक्षाओं में असमानता को दूर करने में ✔**
(4) Increasing competition / प्रतिस्पर्धा बढ़ाने में

Q.189 What is one main goal of working towards gender equality in schools?
विद्यालयों में लैंगिक समानता की दिशा में कार्य करने का एक मुख्य लक्ष्य क्या है?

(1) Allowing only one gender to participate / केवल एक लिंग को भाग लेने की अनुमति देना
(2) **Providing equal opportunities to all genders / सभी लिंगों को समान अवसर प्रदान करना ✔**
(3) Focusing only on academic subjects / केवल शैक्षणिक विषयों पर ध्यान केंद्रित करना
(4) Encouraging competition among students / विद्यार्थियों के बीच प्रतिस्पर्धा को प्रोत्साहित करना

Q.190 What is a key strategy for addressing inequality and diversity in Indian classrooms?
भारतीय कक्षाओं में असमानता और विविधता को संबोधित करने की एक प्रमुख रणनीति क्या है?

(1) Ignoring cultural backgrounds in lessons / पाठों में सांस्कृतिक पृष्ठभूमियों की उपेक्षा करना
(2) **Implementing differentiated instruction / विभेदित अनुदेशन लागू करना ✔**
(3) Using a single teaching method for all students / सभी विद्यार्थियों के लिए एक ही शिक्षण विधि का उपयोग करना
(4) Assigning students to separate classrooms for diversity / विविधता के लिए विद्यार्थियों को अलग-अलग कक्षाओं में रखना

Q.191 A school introduces early screening and remedial classes for children with reading and writing difficulties. Which educational policy framework directly encourages this approach?
एक विद्यालय पढ़ने और लिखने में कठिनाई वाले बच्चों के लिए प्रारंभिक जाँच (स्क्रीनिंग) और उपचारात्मक कक्षाएँ शुरू करता है। कौन-सा शैक्षिक नीतिगत ढाँचा इस उपागम को प्रत्यक्ष रूप से प्रोत्साहित करता है?

(1) RPWD Act 2016 / RPWD अधिनियम 2016
(2) IEP
(3) NIMHANS/DALI
(4) **NCF 2005/RTE ✔**

Q.192 In Bloom's taxonomy, which domain focuses primarily on the development of physical skills and coordination?
ब्लूम की वर्गिकी में, कौन-सा क्षेत्र मुख्य रूप से शारीरिक कौशलों और समन्वय के विकास पर केंद्रित है?

(1) Affective / भावात्मक
(2) **Psychomotor / मनोगत्यात्मक ✔**
(3) Cognitive / संज्ञानात्मक
(4) Theoretical / सैद्धांतिक

Q.193 When assessing language skills, why is a combination of observation, oral tests, and written assignments recommended?

भाषा कौशलों का आकलन करते समय, अवलोकन, मौखिक परीक्षणों और लिखित कार्यों के संयोजन की अनुशंसा क्यों की जाती है?

(1) It limits assessment to factual recall / यह आकलन को तथ्यात्मक स्मरण तक सीमित करता है

(2) **It evaluates multiple competencies / यह अनेक दक्षताओं का मूल्यांकन करता है ✔**

(3) It ensures only advanced grammar is tested / यह सुनिश्चित करता है कि केवल उन्नत व्याकरण का परीक्षण हो

(4) It focuses exclusively on handwriting practice / यह विशेष रूप से हस्तलेखन अभ्यास पर केंद्रित है

Q.194 A doctor reviews a partial list of symptoms and selects the most likely diagnosis. Which type of reasoning is applied?

एक डॉक्टर लक्षणों की एक आंशिक सूची की समीक्षा करता है और सबसे संभावित निदान का चयन करता है। किस प्रकार का तर्क लागू किया गया है?

(1) **Abductive reasoning / अपवर्तनात्मक तर्क (Abductive reasoning) ✔**

(2) Inductive reasoning / आगमनात्मक तर्क (Inductive reasoning)

(3) Deductive reasoning / निगमनात्मक तर्क (Deductive reasoning)

(4) Tautological reasoning / पुनरुक्तिपरक तर्क (Tautological reasoning)

Q.195 A teacher wants to encourage critical thinking during a science lesson. Which use of a science kit would best achieve this goal?

एक शिक्षक विज्ञान के पाठ के दौरान आलोचनात्मक चिंतन को प्रोत्साहित करना चाहता है। विज्ञान किट का कौन-सा उपयोग इस लक्ष्य को सबसे अच्छी तरह प्राप्त करेगा?

(1) Asking students to copy answers from the kit manual / विद्यार्थियों से किट पुस्तिका से उत्तर नकल करने के लिए कहना

(2) **Guiding students to design their own experiments using the kit / विद्यार्थियों को किट का उपयोग करके अपने स्वयं के प्रयोग तैयार करने के लिए मार्गदर्शन देना ✔**

(3) Limiting students to pre-written instructions only / विद्यार्थियों को केवल पूर्व-लिखित निर्देशों तक सीमित रखना

(4) Demonstrating experiments without student participation / विद्यार्थियों की भागीदारी के बिना प्रयोगों का प्रदर्शन करना

Q.196 Which tool is commonly used in recreational mathematics to create patterns?

मनोरंजक गणित में प्रतिरूप (पैटर्न) बनाने के लिए सामान्यतः किस उपकरण का उपयोग किया जाता है?

(1) Calculator / कैलकुलेटर

(2) Protractor / चाँदा (प्रोट्रैक्टर)

(3) **Tangram / टैनग्राम ✔**

(4) Abacus / अबेकस

Q.197 Effective listening in educational settings most directly contributes to which outcome?

शैक्षिक परिवेश में प्रभावी श्रवण सबसे प्रत्यक्ष रूप से किस परिणाम में योगदान देता है?

(1) Faster delivery of instructional content by teachers / शिक्षकों द्वारा अनुदेशात्मक विषयवस्तु की तीव्र प्रस्तुति

(2) **Accurate interpretation of verbal and non-verbal messages / शाब्दिक और अशाब्दिक संदेशों की सटीक व्याख्या ✔**

(3) Reduced dependence on written communication materials / लिखित संप्रेषण सामग्री पर निर्भरता में कमी

(4) Increased authority of the speaker over the listener / श्रोता पर वक्ता के अधिकार में वृद्धि

Q.198 Students create posters on saving water and conduct tree-planting drives. This activity belongs to:
विद्यार्थी जल बचाने पर पोस्टर बनाते हैं और वृक्षारोपण अभियान चलाते हैं। यह गतिविधि किससे संबंधित है?

(1) Debate elimination rounds / वाद-विवाद के निष्कासन चरण
(2) Sports competitions / खेल प्रतियोगिताएँ
(3) **Science and eco-club activities / विज्ञान और इको-क्लब गतिविधियाँ ✔**
(4) Assembly routine / प्रार्थना सभा की दिनचर्या

Q.199 What is the first step in the assessment process for identifying a child with special needs in an inclusive classroom?
समावेशी कक्षा में विशेष आवश्यकता वाले बच्चे की पहचान के लिए आकलन प्रक्रिया का पहला चरण क्या है?

(1) Assigning special curriculum immediately / तुरंत विशेष पाठ्यचर्या निर्धारित करना
(2) **Observing the child's learning and behavior / बच्चे के अधिगम और व्यवहार का अवलोकन करना ✔**
(3) Informing the parents about placement / माता-पिता को प्रवेश (प्लेसमेंट) के बारे में सूचित करना
(4) Conducting a formal medical diagnosis / औपचारिक चिकित्सीय निदान करना

Q.200 A teacher consciously eliminates gendered derogatory remarks and avoids sex-role behavior cues in classroom interaction. Which primary mechanism of gender construction is being challenged?
एक शिक्षक कक्षा की अंतःक्रिया में लिंग-आधारित अपमानजनक टिप्पणियों को सचेत रूप से समाप्त करता है और लिंग-भूमिका व्यवहार संकेतों से बचता है। जेंडर निर्माण की किस प्राथमिक क्रियाविधि को चुनौती दी जा रही है?

(1) Productive labor division / उत्पादक श्रम विभाजन
(2) Sex-role rigidity / लिंग-भूमिका की कठोरता
(3) **Gender socialization / जेंडर समाजीकरण ✔**
(4) Biological determination / जैविक निर्धारण

Answer Key / उत्तर कुंजी

1 3	**2** 1	**3** 2	**4** 4	**5** 4	**6** 1	**7** 4	**8** 3	**9** 4	**10** 4	**11** 3	**12** 4	**13** 2	**14** 1	**15** 2
16 2	**17** 1	**18** 2	**19** 4	**20** 4	**21** 3	**22** 4	**23** 3	**24** 3	**25** 2	**26** 3	**27** 2	**28** 2	**29** 1	**30** 1
31 1	**32** 2	**33** 4	**34** 3	**35** 3	**36** 2	**37** 3	**38** 4	**39** 3	**40** 1	**41** 2	**42** 2	**43** 4	**44** 2	**45** 1
46 3	**47** 2	**48** 3	**49** 4	**50** 1	**51** 1	**52** 3	**53** 3	**54** 1	**55** 1	**56** 1	**57** 3	**58** 3	**59** 2	**60** 1
61 4	**62** 3	**63** 1	**64** 3	**65** 2	**66** 4	**67** 4	**68** 2	**69** 1	**70** 4	**71** 2	**72** 2	**73** 2	**74** 1	**75** 1
76 1	**77** 3	**78** 1	**79** 2	**80** 2	**81** 2	**82** 1	**83** 2	**84** 1	**85** 3	**86** 1	**87** 1	**88** 1	**89** 3	**90** 3
91 2	**92** 3	**93** 4	**94** 1	**95** 1	**96** 3	**97** 4	**98** 1	**99** 4	**100** 4	**101** 4	**102** 4	**103** 4	**104** 2	**105** 2
106 4	**107** 4	**108** 4	**109** 1	**110** 1	**111** 4	**112** 3	**113** 1	**114** 3	**115** 3	**116** 3	**117** 2	**118** 3	**119** 3	**120** 2
121 1	**122** 4	**123** 3	**124** 1	**125** 1	**126** 3	**127** 3	**128** 1	**129** 1	**130** 2	**131** 3	**132** 1	**133** 3	**134** 2	**135** 3
136 3	**137** 3	**138** 3	**139** 3	**140** 2	**141** 2	**142** 1	**143** 3	**144** 3	**145** 3	**146** 1	**147** 3	**148** 2	**149** 2	**150** 1

151 4	**152** 1	**153** 1	**154** 3	**155** 3	**156** 2	**157** 2	**158** 1	**159** 3	**160** 1	**161** 4	**162** 2	**163** 2	**164** 3	**165** 4
166 4	**167** 4	**168** 4	**169** 4	**170** 3	**171** 2	**172** 3	**173** 1	**174** 2	**175** 1	**176** 4	**177** 3	**178** 2	**179** 3	**180** 4
181 4	**182** 3	**183** 2	**184** 1	**185** 2	**186** 3	**187** 3	**188** 3	**189** 2	**190** 2	**191** 4	**192** 2	**193** 2	**194** 1	**195** 2
196 3	**197** 2	**198** 3	**199** 2	**200** 3										

QuickSarkari

GOVT. OF NCT OF DELHI
Delhi Subordinate Services Selection Board
FC-18, Institutional Area, Karkardooma, Delhi – 110092.
www.dsssb.delhigovt.nic.in

Participant ID	
Participant Name	[redacted]
Test Center Name	iON Digital Zone iDZ 2 Sector 62
Test Date	19/02/2026
Test Time	9:00 AM - 11:00 AM
Subject	Assistant Teacher Primary

Section : General Intelligence and Reasoning Ability

Q.1 Refer to the following letter series and answer the question. (Counting to be done from left to right only)
(Left) F W N V N F A S A C P A H H W X J J Z (Right)
How many such vowels are there each of which is immediately preceded by a consonant and also immediately followed by a consonant?

Ans
✗ 1. 1
✗ 2. 2
✓ 3. 3
✗ 4. 4

Question ID : 441009779770
Option 1 ID : 4410093073083
Option 2 ID : 4410093073084
Option 3 ID : 4410093073085
Option 4 ID : 4410093073086

Q.2 Seven boxes, F, I, L, T, E, R and S, are kept one over the other but not necessarily in the same order. Only S is kept above I. Only F is kept between I and E. Only L is kept below T.
How many boxes are kept between R and L?

Ans
✓ 1. One
✗ 2. Four
✗ 3. Three
✗ 4. Two

Question ID : 4410091518831
Option 1 ID : 4410095998602
Option 2 ID : 4410095998605
Option 3 ID : 4410095998604
Option 4 ID : 4410095998603

QuickSarkari.com | WhatsApp Channel | Telegram: t.me/quick_sarkari

Q.3 Select the option figure in which the given figure (X) is embedded as its part (rotation is NOT allowed).

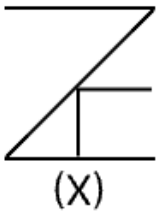

Ans

✗ 1. 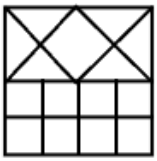

✓ 2. 

✗ 3. 

✗ 4. 

Question ID : **4410091377927**
Option 1 ID : **4410095519100**
Option 2 ID : **4410095519098**
Option 3 ID : **4410095519099**
Option 4 ID : **4410095519097**

Q.4 Faisal ranked 22nd from the top and 20th from the bottom in his class. How many students are there in his class?

Ans

✗ 1. 40

✗ 2. 39

✗ 3. 38

✓ 4. 41

Question ID : **4410091518819**
Option 1 ID : **4410095998556**
Option 2 ID : **4410095998555**
Option 3 ID : **4410095998554**
Option 4 ID : **4410095998557**

QuickSarkari.com | WhatsApp Channel | Telegram: t.me/quick_sarkari

Q.5 In a row of people all facing north, Piyush is 11th from the right end. Krishna is 20th from the right end. Krishna is exactly between Piyush and Jackie. If Jackie is 4th from the left end of the line, how many people are there in the row?

Ans
✗ 1. 30
✗ 2. 33
✗ 3. 31
✓ 4. 32

Question ID : **4410091619667**
Option 1 ID : **4410096397524**
Option 2 ID : **4410096397527**
Option 3 ID : **4410096397525**
Option 4 ID : **4410096397526**

Q.6 If 'A' stands for '÷' , 'B' stands for 'x', 'C' stands for '+' and 'D' stands for '-', what will come in place of question mark '?' in the following equation?
15 B 3 D 6 A 3 C 7 = ?

Ans
✓ 1. 50
✗ 2. 60
✗ 3. 55
✗ 4. 45

Question ID : **4410091606210**
Option 1 ID : **4410096343865**
Option 2 ID : **4410096343867**
Option 3 ID : **4410096343866**
Option 4 ID : **4410096343864**

QuickSarkari.com | WhatsApp Channel | Telegram: t.me/quick_sarkari

Q.7 Select the correct mirror image of the given combination when the mirror is placed at PQ as shown below.

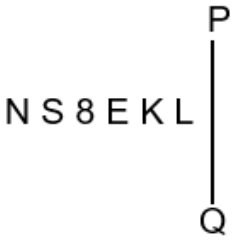

Ans

✗ 1. 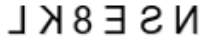

✗ 2. 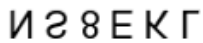

✗ 3. 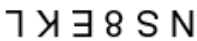

✓ 4. 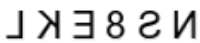

Question ID : **44100971756**
Option 1 ID : **441009285408**
Option 2 ID : **441009285406**
Option 3 ID : **441009285405**
Option 4 ID : **441009285407**

Q.8 Based on the English alphabetical order, three of the following four are alike in a certain way and thus form a group. Which is the one that does not belong to that group?
(Note: The odd one out is not based on the number of consonants/vowels or their position in the letter cluster)11588

Ans

✗ 1. EGJ

✗ 2. LNQ

✓ 3. QST

✗ 4. TVY

Question ID : **441009785450**
Option 1 ID : **4410093095805**
Option 2 ID : **4410093095804**
Option 3 ID : **4410093095806**
Option 4 ID : **4410093095803**

Quick Sarkari

Q.9 Based on the English alphabetical order, three of the following four letter-cluster pairs are alike in a certain way and thus form a group. Which is the one that does not belong to that group?
(Note: The odd one out is not based on the number of consonants/vowels or their position in the letter-cluster.)

Ans
✗ 1. RK - LE
✗ 2. UN - OH
✗ 3. OH - IB
✓ 4. QJ - LP

Question ID : **4410098113353**
Option 1 ID : **4410093199536**
Option 2 ID : **4410093199535**
Option 3 ID : **4410093199537**
Option 4 ID : **4410093199538**

Q.10 What should come in place of '?' in the given series?

4 ? 32 95 284 851

Ans
✗ 1. 8
✗ 2. 19
✗ 3. 24
✓ 4. 11

Question ID : **4410091528146**
Option 1 ID : **4410096035777**
Option 2 ID : **4410096035779**
Option 3 ID : **4410096035780**
Option 4 ID : **4410096035778**

Q.11 Below are given two sets of numbers. In each set of numbers, a certain mathematical operation on the first number results in the second number. Similarly, certain mathematical operation on the second number results in the third number and so on. Which of the given options follows the same set of operations as in the question?
(NOTE – A two/three-digit number cannot be broken into individual digits for operations e.g. if 37 is followed by 10, the operation cannot be 3+7 as a two-digit number cannot be broken into individual digits)
21 - 29 - 232 - 225
18 - 26 - 208 - 2012394

Ans
✗ 1. 17 - 25 - 250 - 244
✗ 2. 46 - 53 - 371 - 364
✓ 3. 39 - 47 - 376 - 369
✗ 4. 26 - 35 - 280 - 274

Question ID : **4410095528748**
Option 1 ID : **4410092070399**
Option 2 ID : **4410092070398**
Option 3 ID : **4410092070396**
Option 4 ID : **4410092070397**

QuickSarkari.com | WhatsApp Channel | Telegram: t.me/quick_sarkari

Q.12 Refer to the following letter, symbol series and answer the question. Counting to be done from left to right only.
(Left) £ B % K H & @ & J © J € O X $ N $ J @ & P O (Right)
How many such letters are there each of which is immediately preceded by a letter and also immediately followed by a symbol?

Ans
✗ 1. 4
✗ 2. 1
✗ 3. 3
✓ 4. 2

Question ID : **441009795660**
Option 1 ID : **4410093136642**
Option 2 ID : **4410093136641**
Option 3 ID : **4410093136640**
Option 4 ID : **4410093136639**

Q.13 This question is based on the five, three-digit numbers given below.
(Left) 287 846 241 726 468 (Right)
(Example: 697 – First digit = 6, second digit = 9 and third digit = 7)
(NOTE : All operations to be done from left to right.)

What will be the resultant if the second digit of the second-highest number is multiplied by the second digit of the third-lowest number?

Ans
✗ 1. 21
✓ 2. 12
✗ 3. 22
✗ 4. 10

Question ID : **441009794347**
Option 1 ID : **4410093131389**
Option 2 ID : **4410093131388**
Option 3 ID : **4410093131390**
Option 4 ID : **4410093131387**

Q.14 In a certain code language, 'HARM' is coded as '4871' and 'RAMP' is coded as '8137'.
What is the code for 'P' in the given code language?

Ans
✓ 1. 3
✗ 2. 1
✗ 3. 4
✗ 4. 8

Question ID : **4410091518942**
Option 1 ID : **4410095999022**
Option 2 ID : **4410095999024**
Option 3 ID : **4410095999023**
Option 4 ID : **4410095999025**

QuickSarkari.com | WhatsApp Channel | Telegram: t.me/quick_sarkari

Q.15 Each vowel in the word AWAITING is changed to the letter immediately following it in the English alphabetical order and each consonant is changed to the letter immediately preceding it in the English alphabetical order. How many letters will appear exactly twice in the new group of letters thus formed?

Ans
1. Three
2. Two
3. Four
4. One

Question ID : **441009216477**
Option 1 ID : **441009849949**
Option 2 ID : **441009849948**
Option 3 ID : **441009849950**
Option 4 ID : **441009849947**

Q.16 S is the brother of A. A is the father of Y. B is the father of W. W is the son of Y. How is S related to W?

Ans
1. Mother's father's father
2. Mother's father's brother
3. Mother's father
4. Mother's brother

Question ID : **4410091614486**
Option 1 ID : **4410096376762**
Option 2 ID : **4410096376761**
Option 3 ID : **4410096376763**
Option 4 ID : **4410096376764**

Q.17 HIKH is related to LMOL in a certain way based on the English alphabetical order. In the same way, DEGD is related to HIKH. To which of the following is ABDA related, following the same logic?5094

Ans
1. EFHE
2. EEGE
3. EFGE
4. EGGO

Question ID : **441009779057**
Option 1 ID : **4410093070231**
Option 2 ID : **4410093070233**
Option 3 ID : **4410093070234**
Option 4 ID : **4410093070232**

QuickSarkari.com | WhatsApp Channel | Telegram: t.me/quick_sarkari

Q.18 Which of the following letter-number clusters will replace the question mark (?) in the given series to make it logically complete?

GHJ51 , JKM67 , MNP83 , PQS99 , ?

Ans
✗ 1. KTV115
✓ 2. STV115
✗ 3. STU115
✗ 4. SIV115

Question ID : **4410091519086**
Option 1 ID : **4410095999609**
Option 2 ID : **4410095999606**
Option 3 ID : **4410095999607**
Option 4 ID : **4410095999608**

Q.19 Each of the digits in the number 46812597 is arranged in ascending order from left to right. What will be the sum of the digits which are third from the left and fourth from the right in the number thus formed?

Ans
✗ 1. 11
✗ 2. 12
✗ 3. 13
✓ 4. 10

Question ID : **4410091656328**
Option 1 ID : **4410096540268**
Option 2 ID : **4410096540269**
Option 3 ID : **4410096540270**
Option 4 ID : **4410096540267**

Q.20 Seven people, R, O, A, M, I, N and G, are sitting in a row, facing north. Only two people sit to the left of N. Only three people sit between N and A. Only one person sits between A and R. O sits to the immediate left of I. G is not an immediate neighbor of A. How many people sit to the right of M?

Ans
✗ 1. Two
✗ 2. Three
✗ 3. Four
✓ 4. One

Question ID : **4410091518809**
Option 1 ID : **4410095998519**
Option 2 ID : **4410095998520**
Option 3 ID : **4410095998521**
Option 4 ID : **4410095998518**

Section : General Awareness

QuickSarkari.com | WhatsApp Channel | Telegram: t.me/quick_sarkari

Q.1 Which of the following CORRECTLY illustrates the long-term constitutional consequence of the Kesavananda Bharati judgment in the context of parliamentary attempts at asserting supremacy?

Ans
✗ 1. The constitutional review exercise post-1980 successfully removed all restrictions on amending fundamental rights

✗ 2. The 42nd Amendment annulled the basic structure doctrine, making Parliament sovereign in all constitutional matters.

✓ 3. Despite the 42nd Amendment, the Supreme Court in Minerva Mills reaffirmed the basic structure doctrine, limiting constitutional amendments.

✗ 4. The Minerva Mills judgment overturned Kesavananda and declared the Preamble non-justiciable.

Question ID : **4410096718 41**
Option 1 ID : **4410092641461**
Option 2 ID : **4410092641458**
Option 3 ID : **4410092641460**
Option 4 ID : **4410092641459**

Q.2 The Governor of a State shall be appointed by the _____ by warrant under his hand and seal.

Ans
✗ 1. Prime Minister of India

✗ 2. Chief Justice of India

✗ 3. Respective State's Chief Minister

✓ 4. President of India

Question ID : **4410096721 44**
Option 1 ID : **4410092642670**
Option 2 ID : **4410092642673**
Option 3 ID : **4410092642672**
Option 4 ID : **4410092642671**

Q.3 Which nation served as the host for COP30 Climate Summit in 2025?

Ans
✗ 1. Germany

✗ 2. India

✓ 3. Brazil

✗ 4. Canada

Question ID : **4410091556431**
Option 1 ID : **4410096148295**
Option 2 ID : **4410096148294**
Option 3 ID : **4410096148297**
Option 4 ID : **4410096148296**

Quick Sarkari

Q.4 The Great Indian Plains were primarily formed by which geological process?

Ans
✗ 1. Glacial erosion
✗ 2. Volcanic eruption
✓ 3. Sediment deposition
✗ 4. Tectonic uplift

Question ID : **441009321799**
Option 1 ID : **4410091253398**
Option 2 ID : **4410091253395**
Option 3 ID : **4410091253397**
Option 4 ID : **4410091253396**

Q.5 Article 359A of the Indian constitution is related to which of the following states?

Ans
✗ 1. Meghalaya
✓ 2. Punjab
✗ 3. Jammu & Kashmir
✗ 4. Assam

Question ID : **441009327805**
Option 1 ID : **4410091277679**
Option 2 ID : **4410091277680**
Option 3 ID : **4410091277681**
Option 4 ID : **4410091277678**

Q.6 Which AI tool was launched in November 2025 by Indian researchers to analyze cancer?

Ans
✗ 1. MedAI
✗ 2. GeneTrack
✓ 3. OncoMark
✗ 4. BioScan

Question ID : **4410091563041**
Option 1 ID : **4410096173730**
Option 2 ID : **4410096173729**
Option 3 ID : **4410096173728**
Option 4 ID : **4410096173727**

QuickSarkari.com | WhatsApp Channel | Telegram: t.me/quick_sarkari

Q.7 Which monument, built by Shah Jahan in memory of his wife Mumtaz Mahal, is a UNESCO World Heritage Site?

Ans
✗ 1. Red Fort
✓ 2. Taj Mahal
✗ 3. Qutub Minar
✗ 4. Humayun's Tomb

Question ID : **441009749042**
Option 1 ID : **4410092949989**
Option 2 ID : **4410092949990**
Option 3 ID : **4410092949988**
Option 4 ID : **4410092949991**

Q.8 What was the initial aim of the Indian National Congress when it was founded in 1885?

Ans
✗ 1. Religious unity
✓ 2. Full independence
✗ 3. Armed rebellion
✗ 4. Limited reforms

Question ID : **441009876101**
Option 1 ID : **4410093458021**
Option 2 ID : **4410093458019**
Option 3 ID : **4410093458022**
Option 4 ID : **4410093458020**

Q.9 The missile tested by DRDO & Indian Navy on 27th February, 2025, from Chandipur was:

Ans
✓ 1. NASM-SR naval anti-ship missile
✗ 2. BrahMos II
✗ 3. Pralay tactical missile
✗ 4. Agni-P

Question ID : **441009225146**
Option 1 ID : **441009881699**
Option 2 ID : **441009881697**
Option 3 ID : **441009881698**
Option 4 ID : **441009881700**

QuickSarkari.com | WhatsApp Channel | Telegram: t.me/quick_sarkari

Q.10 What does BPO commonly refer to?

Ans
✔ 1. Business Process Outsourcing
✘ 2. Banking Process Order
✘ 3. Basic Product Outsourcing
✘ 4. Business Private Operations

Question ID : **441009226635**
Option 1 ID : **441009887379**
Option 2 ID : **441009887378**
Option 3 ID : **441009887380**
Option 4 ID : **441009887377**

Q.11 Which of the following best describes the EOS-05 mission by ISRO?

Ans
✔ 1. An Earth observation satellite for environmental monitoring.
✘ 2. A deep space exploration mission targeting Mars.
✘ 3. A communication satellite for global connectivity.
✘ 4. A satellite designed for space docking experiments.

Question ID : **441009312306**
Option 1 ID : **4410091215703**
Option 2 ID : **4410091215704**
Option 3 ID : **4410091215702**
Option 4 ID : **4410091215705**

Q.12 Which of the following is NOT a key area of urban development under the Atal Mission for Rejuvenation and Urban Transformation (AMRUT)?

Ans
✘ 1. Non-Motorised Urban Transport
✔ 2. Promotion of transshipment hubs
✘ 3. Sewerage and septage management
✘ 4. Green spaces and parks

Question ID : **4410091457543**
Option 1 ID : **4410095758483**
Option 2 ID : **4410095758482**
Option 3 ID : **4410095758481**
Option 4 ID : **4410095758480**

QuickSarkari.com | WhatsApp Channel | Telegram: t.me/quick_sarkari

Q.13 In April 2025, Klaus Schwab resigned as Chairman of the World Economic Forum after how many years of service in the Geneva-based institution?

Ans
✗ 1. 43
✗ 2. 59
✗ 3. 36
✓ 4. 55

Question ID : 441009321062
Option 1 ID : 4410091250514
Option 2 ID : 4410091250516
Option 3 ID : 4410091250513
Option 4 ID : 4410091250515

Q.14 The 'Dumhal' dance is performed by which tribe in Jammu and Kashmir?

Ans
✗ 1. Gujjar
✗ 2. Bhil
✓ 3. Wattal
✗ 4. Bakarwal

Question ID : 441009275771
Option 1 ID : 4410091071257
Option 2 ID : 4410091071255
Option 3 ID : 4410091071258
Option 4 ID : 4410091071256

Q.15 Which of the following is a key feature of the tertiary sector in advanced economies?

Ans
✗ 1. Overproduction of manufactured goods for export
✗ 2. Reliance on large-scale primary industries
✓ 3. Growth of highly specialized and knowledge-based services
✗ 4. Dominance of low-skilled labor

Question ID : 441009209755
Option 1 ID : 441009824269
Option 2 ID : 441009824266
Option 3 ID : 441009824268
Option 4 ID : 441009824267

QuickSarkari.com | WhatsApp Channel | Telegram: t.me/quick_sarkari

Q.16 Who among the following led the anti-partition movement under the moderates?

Ans
✗ 1. Bhagat Singh
✓ 2. Surendranath Banerjee
✗ 3. Jawaharlal Nehru
✗ 4. Mahatma Gandhi

Question ID : **441009328857**
Option 1 ID : **4410091281840**
Option 2 ID : **4410091281839**
Option 3 ID : **4410091281841**
Option 4 ID : **4410091281838**

Q.17 When did the ruler of Iran, Nadir Shah, sacked and plundered the city of Delhi and took away immense amounts of wealth?

Ans
✗ 1. 1839 AD
✗ 2. 1639 AD
✓ 3. 1739 AD
✗ 4. 1539 AD

Question ID : **441009102990**
Option 1 ID : **441009410011**
Option 2 ID : **441009410009**
Option 3 ID : **441009410010**
Option 4 ID : **441009410008**

Q.18 Which natural substance is used to produce litmus?

Ans
✗ 1. Algae
✗ 2. Bacteria
✗ 3. Fungi
✓ 4. Lichens

Question ID : **441009513039**
Option 1 ID : **4410092007154**
Option 2 ID : **4410092007155**
Option 3 ID : **4410092007152**
Option 4 ID : **4410092007153**

QuickSarkari.com | WhatsApp Channel | Telegram: t.me/quick_sarkari

Q.19 The last amino acid in a protein sequence is called the _____.

Ans
✗ 1. N-terminal
✗ 2. Beta-end
✓ 3. C-terminal
✗ 4. Omega group

Question ID : **441009512778**
Option 1 ID : **4410092006241**
Option 2 ID : **4410092006240**
Option 3 ID : **4410092006242**
Option 4 ID : **4410092006243**

Q.20 What was the expected outcome of the trade and investment policy reforms of 1991?

Ans
✓ 1. Increased adoption of modern technologies
✗ 2. Reduced efficiency of local industries
✗ 3. Decreased foreign investment
✗ 4. Increased trade barriers

Question ID : **441009226689**
Option 1 ID : **441009887592**
Option 2 ID : **441009887591**
Option 3 ID : **441009887593**
Option 4 ID : **441009887594**

Section : **Arithmetical and Numerical Ability**

Q.1 A shopkeeper offers two successive discounts of 15% and 20% on an article marked at ₹4,000. What is the final selling price?

Ans
✗ 1. ₹3,200
✓ 2. ₹2,720
✗ 3. ₹2,600
✗ 4. ₹2,880

Question ID : **4410091546480**
Option 1 ID : **4410096108806**
Option 2 ID : **4410096108804**
Option 3 ID : **4410096108803**
Option 4 ID : **4410096108805**

QuickSarkari.com | WhatsApp Channel | Telegram: t.me/quick_sarkari

Q.2 The average runs scored by a batsman in 21 matches is 40 runs. In the next 15 matches, the batsman scored an average of 13 runs. Find his average (in runs, rounded off to two decimals) in all the 36 matches.

Ans
1. 30.75
2. 28.75
3. 27.75
4. 29.75

Question ID : **441009894836**
Option 1 ID : **4410093533417**
Option 2 ID : **4410093533414**
Option 3 ID : **4410093533415**
Option 4 ID : **4410093533416**

Q.3 During the first year the population of a village increased by 8% and in the second year it diminished by 8%. At the end of the second year, its population was 34776. What was the population at the beginning of the first year?

Ans
1. 34200
2. 34000
3. 34900
4. 35000

Question ID : **4410098336**
Option 1 ID : **44100933053**
Option 2 ID : **44100933052**
Option 3 ID : **44100933054**
Option 4 ID : **44100933055**

Q.4 The diameter of a metallic sphere is 6 cm. It is melted and drawn into a wire with a cross-sectional diameter of 0.2 cm. Find the length (in metres) of the wire.

Ans
1. 0.36
2. 36
3. 3.6
4. 360

Question ID : **441009621026**
Option 1 ID : **4410092438236**
Option 2 ID : **4410092438238**
Option 3 ID : **4410092438237**
Option 4 ID : **4410092438239**

QuickSarkari.com | WhatsApp Channel | Telegram: t.me/quick_sarkari

Q.5 In what ratio (cheaper to dearer) should a grocer mix two varieties of pulses costing ₹18 and ₹22 per kg, respectively, to obtain a mixture worth ₹19.50 per kg?

Ans
✔ 1. 5 : 3
✘ 2. 4 : 3
✘ 3. 2 : 5
✘ 4. 3 : 7

Question ID : **441009287268**
Option 1 ID : **4410091120031**
Option 2 ID : **4410091120032**
Option 3 ID : **4410091120033**
Option 4 ID : **4410091120034**

Q.6 Three cubes with sides in the ratio 2 : 3 : 4 are melted to form a single cylinder whose radius is 6 cm and height is 7 cm. What are the sides of the cubes?
(Given: $\pi = \frac{22}{7}$.)

Ans
✘ 1. 2 cm, 3 cm and 4 cm
✘ 2. 8 cm, 12 cm and 16 cm
✔ 3. 4 cm, 6 cm and 8 cm
✘ 4. 6 cm, 9 cm and 12 cm

Question ID : **44100952340**
Option 1 ID : **441009208476**
Option 2 ID : **441009208478**
Option 3 ID : **441009208475**
Option 4 ID : **441009208477**

Q.7 A group of 5 workers can complete a task in 12 days. After 4 days, 2 more workers join the group. In how many more days will the remaining work be completed?

Ans
✘ 1. $5\frac{3}{5}$
✔ 2. $5\frac{5}{7}$
✘ 3. $7\frac{2}{3}$
✘ 4. $5\frac{5}{9}$

Question ID : **44100952118**
Option 1 ID : **441009207593**
Option 2 ID : **441009207592**
Option 3 ID : **441009207594**
Option 4 ID : **441009207591**

QuickSarkari

Q.8 A metallic rod is divided into four equal parts. These parts are t
with a side length of 5 m. What is the total length (in m) of the

Ans
✗ 1. 32
✗ 2. 36
✓ 3. 34
✗ 4. 38

Question ID : **44100918106**
Option 1 ID : **44100972248**
Option 2 ID : **44100972249**
Option 3 ID : **44100972247**
Option 4 ID : **44100972250**

Q.9 A shopkeeper sold a book at a loss of 7%. If the selling price had been increased by ₹120, there would have been a gain of 18%. What was the cost price (in ₹) of the book?1763

Ans
✗ 1. 475
✗ 2. 490
✗ 3. 485
✓ 4. 480

Question ID : **441009895076**
Option 1 ID : **4410093534375**
Option 2 ID : **4410093534377**
Option 3 ID : **4410093534376**
Option 4 ID : **4410093534374**

Q.10 A shopkeeper bought a chair for ₹2,400 and spent ₹100 on its transportation. He sold it for ₹3,000. What is his profit percentage?

Ans
✓ 1. 20%
✗ 2. 18%
✗ 3. 15%
✗ 4. 25%

Question ID : **4410091639868**
Option 1 ID : **4410096476687**
Option 2 ID : **4410096476689**
Option 3 ID : **4410096476686**
Option 4 ID : **4410096476688**

QuickSarkari.com | WhatsApp Channel | Telegram: t.me/quick_sarkari

Q.11 What sum (in ₹) will earn a simple interest of ₹1560 in 2 years at 16% per year rate of interest?1359

Ans
✔ 1. 4875
✘ 2. 9750
✘ 3. 499.2
✘ 4. 2437.5

Question ID : **441009852641**
Option 1 ID : **4410093363536**
Option 2 ID : **4410093363538**
Option 3 ID : **4410093363539**
Option 4 ID : **4410093363537**

Q.12 Which of the following exactly divides 281 × 926 × 2007?

Ans
✘ 1. 7
✘ 2. 5
✔ 3. 9
✘ 4. 11

Question ID : **44100951528**
Option 1 ID : **441009205261**
Option 2 ID : **441009205260**
Option 3 ID : **441009205262**
Option 4 ID : **441009205263**

Q.13 The value of $(5 + 2\sqrt{6}) + \frac{1}{(5 - 2\sqrt{6})} - (10 + 4\sqrt{6})$ is:

Ans
✘ 1. 4
✘ 2. 2
✔ 3. 0
✘ 4. 1

Question ID : **4410098259**
Option 1 ID : **44100932743**
Option 2 ID : **44100932742**
Option 3 ID : **44100932740**
Option 4 ID : **44100932741**

QuickSarkari.com | WhatsApp Channel | Telegram: t.me/quick_sarkari

Q.14 A and B can do a piece of work in 12 days and 28 days, respectively. Both work for 3 days and then A goes away. How long (in days) will B take to complete the remaining work?4040

Ans
✔ 1. 18
✘ 2. 19
✘ 3. 17
✘ 4. 20

Question ID : **441009897353**
Option 1 ID : **4410093543482**
Option 2 ID : **4410093543483**
Option 3 ID : **4410093543484**
Option 4 ID : **4410093543485**

Q.15 The table given below shows the number of cycles sold by five showr

Study the table and answer the question that follows.

YEAR/SHOWROOM	P	Q	R
2019	360	380	340
2020	320	350	380
2021	410	400	480
2022	480	470	420
2023	520	410	500

Find the number of cycles sold by showroom Q during the years 2020

Ans
✔ 1. 1630
✘ 2. 1720
✘ 3. 1580
✘ 4. 1370

Question ID : **4410095689**
Option 1 ID : **44100922536**
Option 2 ID : **44100922537**
Option 3 ID : **44100922535**
Option 4 ID : **44100922534**

Quick Sarkari

Q.16 There are three types of drinks in which the ratios of juice to water are 2 : 3, 3 : 7, and 4 : 5. Container M is completely filled with the first type of drink, container N is completely filled with the second type of drink, and container O is completely filled with the third type of drink. If the capacities of these containers are in the ratio 6 : 5 : 4, which containers contains the least amount of juice?

Ans
✔ 1. N
✘ 2. All have equal amount of juice.
✘ 3. M
✘ 4. O

Question ID : **44100952072**
Option 1 ID : **441009207413**
Option 2 ID : **441009207415**
Option 3 ID : **441009207412**
Option 4 ID : **441009207414**

Q.17 Two trains of lengths 200 m and 400 m are 150 m apart. They
In how much time (in seconds) will the trains cross each other?

Ans
✘ 1. 15
✘ 2. 5
✔ 3. 10
✘ 4. 20

Question ID : **44100920186**
Option 1 ID : **44100980475**
Option 2 ID : **44100980473**
Option 3 ID : **44100980474**
Option 4 ID : **44100980476**

Q.18 Find the fourth proportional to the number 24, 32 and 42.

Ans
✘ 1. 28
✘ 2. 42
✔ 3. 56
✘ 4. 63

Question ID : **4410096013**
Option 1 ID : **44100923829**
Option 2 ID : **44100923830**
Option 3 ID : **44100923831**
Option 4 ID : **44100923832**

QuickSarkari.com | WhatsApp Channel | Telegram: t.me/quick_sarkari

Q.19 The population of a city increases by 5% annually. The present population of the city is 1,86,102. The population of this city two years ago was _____.

Ans
✗ 1. 1,88,600
✓ 2. 1,68,800
✗ 3. 1,86,800
✗ 4. 84,400

Question ID : **441009183353**
Option 1 ID : **441009724821**
Option 2 ID : **441009724818**
Option 3 ID : **441009724819**
Option 4 ID : **441009724820**

Q.20 Ajay takes 46 hours to row 130 km upstream and 260 km downstream. Additionally, he takes 34 hours to swim 90 km upstream and 208 km downstream. What is the speed of Ajay in still water?

Ans
✓ 1. 9 km/hr
✗ 2. 7 km/hr
✗ 3. 12 km/hr
✗ 4. 10 km/hr

Question ID : **44100952227**
Option 1 ID : **441009208028**
Option 2 ID : **441009208027**
Option 3 ID : **441009208030**
Option 4 ID : **441009208029**

Section : English Language and Comprehension

Q.1 Choose the option that shows the same kind of relationship/connection as the given sentence.

The thief broke the lock to enter the house.

Ans
✗ 1. The player trained hard for the match.
✗ 2. The author revised the manuscript again.
✗ 3. The gardener watered the plants in the morning.
✓ 4. The spy hacked the system to steal data.

Question ID : **4410091526308**
Option 1 ID : **4410096028350**
Option 2 ID : **4410096028352**
Option 3 ID : **4410096028351**
Option 4 ID : **4410096028353**

QuickSarkari.com | WhatsApp Channel | Telegram: t.me/quick_sarkari

Q.2 Select the most appropriate article to fill in the blank. If no article is needed, select 'No article required'.

She read about _____ theory of relativity in the physics textbook.

Ans
✗ 1. a
✗ 2. No article required
✓ 3. the
✗ 4. an

Question ID : **4410091087917**
Option 1 ID : **4410094289199**
Option 2 ID : **4410094289202**
Option 3 ID : **4410094289201**
Option 4 ID : **4410094289200**

Q.3 Select the option that is the most appropriate antonym of the underlined word in the given sentence.

He was criticised for his <u>insolent</u> behaviour.

Ans
✓ 1. courteous
✗ 2. unethical
✗ 3. aggressive
✗ 4. warranted

Question ID : **4410091639651**
Option 1 ID : **4410096476019**
Option 2 ID : **4410096476018**
Option 3 ID : **4410096476021**
Option 4 ID : **4410096476020**

Q.4 In the given question, a statement divided into different segments is given. The first segment is fixed. Rearrange the other segments to form a coherent statement.

1)The innovative scientist conducted a series of experiments
A) that could change the future of medicine
B) with meticulous attention to detail
C) in her state-of-the-art laboratory
D) leading to ground breaking discoveries

Ans
✗ 1. 1-B-A-C-D
✗ 2. 1-C-A-D-B
✓ 3. 1-C-B-D-A
✗ 4. 1-D-B-A-C

Question ID : **4410091524487**
Option 1 ID : **4410096021184**
Option 2 ID : **4410096021187**
Option 3 ID : **4410096021186**
Option 4 ID : **4410096021185**

QuickSarkari.com | WhatsApp Channel | Telegram: t.me/quick_sarkari

Q.5 Substitute with one word
The term that refers to the systematic study of religion and religious beliefs.

Ans
✗ 1. Sociology
✓ 2. Theology
✗ 3. Anthropology
✗ 4. Mythology

Question ID : **4410091526261**
Option 1 ID : **4410096028164**
Option 2 ID : **4410096028163**
Option 3 ID : **4410096028162**
Option 4 ID : **4410096028165**

Q.6 Select the option that is the most appropriate antonym of the underlined word in the given sentence.

The government's response to the disaster was expeditious and effective.

Ans
✗ 1. coordinated
✗ 2. haphazard
✗ 3. decentralised
✓ 4. lagging

Question ID : **4410091639700**
Option 1 ID : **4410096476130**
Option 2 ID : **4410096476131**
Option 3 ID : **4410096476132**
Option 4 ID : **4410096476133**

Q.7 Complete the sentence with the appropriate word.
The team worked _____ to finish the project before the deadline.

Ans
✗ 1. reluctantly
✗ 2. rarely
✗ 3. randomly
✓ 4. tirelessly

Question ID : **4410091553002**
Option 1 ID : **4410096134325**
Option 2 ID : **4410096134326**
Option 3 ID : **4410096134327**
Option 4 ID : **4410096134324**

QuickSarkari.com | WhatsApp Channel | Telegram: t.me/quick_sarkari

Q.8 Choose the option that can replace the highlighted text with the correct proverb.
After losing the match, the team realized that there was no point worrying about what had already happened hence they started to focus on preparing for the next game.

Ans
✗ 1. A stitch in time saves nine
✓ 2. It's no use crying over spilt milk
✗ 3. Actions speak louder than words
✗ 4. Empty vessels make

Question ID : **4410091527687**
Option 1 ID : **4410096033959**
Option 2 ID : **4410096033960**
Option 3 ID : **4410096033962**
Option 4 ID : **4410096033961**

Q.9 Parts of a sentence are given below in jumbled order. The first part of the sentence is fixed, followed by P, Q, R, S, and T. Arrange the jumbled parts in the correct order to form a meaningful sentence.

The cleanliness drive in India
P: for spreading awareness
Q: under the Swachh Bharat Abhiyan
R: has become a nationwide movement
S: among school and college students
T: led by enthusiastic volunteers

Ans
✓ 1. Q R T P S
✗ 2. S Q T P R
✗ 3. T R P S Q
✗ 4. P S Q T R

Question ID : **4410091096080**
Option 1 ID : **4410094321701**
Option 2 ID : **4410094321704**
Option 3 ID : **4410094321702**
Option 4 ID : **4410094321703**

Q.10 Parts of the given sentence have been underlined. One of them contains a spelling error. The underlined parts are given as options with some changes. Select the option that correctly rectifies the error.

If someone priorritizes something over others, he treats it as more important than other things.

Ans
✗ 1. Thinngs
✗ 2. Somaone
✗ 3. Immportant
✓ 4. Prioritizes

Question ID : **4410091385304**
Option 1 ID : **4410095471959**
Option 2 ID : **4410095471956**
Option 3 ID : **4410095471958**
Option 4 ID : **4410095471957**

QuickSarkari.com | WhatsApp Channel | Telegram: t.me/quick_sarkari

Q.11 Select the misspelt word.

Ans
✗ 1. Casualty
✓ 2. Deterreed
✗ 3. Binocular
✗ 4. Cowardice

Question ID : 4410091265528
Option 1 ID : 4410094995014
Option 2 ID : 4410094995016
Option 3 ID : 4410094995015
Option 4 ID : 4410094995017

Q.12 A sentence has been given with highlighted text. You are required to replace it with the correct idiom from the options.

By rebuking the protestors, you will only aggravate the situation and perhaps cause more problems.

Ans
✗ 1. kick up a row
✓ 2. add fuel to the fire
✗ 3. break loose
✗ 4. break the ice

Question ID : 441009171280
Option 1 ID : 441009678012
Option 2 ID : 441009678011
Option 3 ID : 441009678009
Option 4 ID : 441009678010

Q.13 Complete the sentence with the appropriate word.

The students _____ their notebooks during the lecture.

Ans
✗ 1. narrated
✓ 2. opened
✗ 3. discarded
✗ 4. published

Question ID : 4410091553015
Option 1 ID : 4410096134378
Option 2 ID : 4410096134376
Option 3 ID : 4410096134377
Option 4 ID : 4410096134379

QuickSarkari.com | WhatsApp Channel | Telegram: t.me/quick_sarkari

Q.14 Select the most appropriate option to fill in the blank.

The novel offers a _____ portrayal of rural life, neither idealising nor condemning it.

Ans
✔ 1. balanced
✘ 2. superficial
✘ 3. distorted
✘ 4. sentimental

Question ID : **4410091481676**
Option 1 ID : **4410095853767**
Option 2 ID : **4410095853766**
Option 3 ID : **4410095853768**
Option 4 ID : **4410095853769**

Q.15 Choose the appropriate option to complete the sentence.

Meera narrated ___ incredible story about her travels and shared ___ amusing incident from her childhood.

Ans
✔ 1. an / an
✘ 2. a / a
✘ 3. the / a
✘ 4. the / the

Question ID : **4410091308129**
Option 1 ID : **4410095164177**
Option 2 ID : **4410095164175**
Option 3 ID : **4410095164178**
Option 4 ID : **4410095164176**

QuickSarkari.com | WhatsApp Channel | Telegram: t.me/quick_sarkari

Comprehension:

Read the given passage and answer the questions that follow.

The night was routine, the sky clear, as Malaysia Airlines Flight MH370 soared above the South China Sea. The Boeing 777, carrying 239 passengers and crew, had just begun its journey from Kuala Lumpur to Beijing. Inside the cabin, travellers settled in—some asleep, others watching movies, unaware that they were part of what would become one of aviation's greatest mysteries.

At 1:19 a.m., the pilot's calm voice radioed air traffic control: "Good night, Malaysian three-seven-zero." Minutes later, the plane vanished from radar. No distress signal. No final call. Just silence. As confusion turned to panic, search teams scrambled across vast oceans, chasing scattered leads. Satellite data suggested the aircraft had veered off course, flying for hours into the remote Indian Ocean.

Despite the largest and most expensive search effort in aviation history, only a few debris pieces were ever found. Theories arose—mechanical failure, pilot intervention, hijacking—but the truth remained elusive. Families waited for answers that never came.

Even today, the fate of MH370 haunts the world. It is a chilling reminder of how, in an age of technology, a massive aircraft can simply disappear—leaving behind only questions, grief and an endless sky.

SubQuestion No : 16

Q.16 What made the disappearance of MH370 unusual?

Ans

✔ 1. It vanished from radar without any warning or final communication.

✘ 2. It was found shortly after crashing into the sea.

✘ 3. The flight was never scheduled to take off that day.

✘ 4. The aircraft sent multiple distress signals before vanishing.

Question ID : **44100928667**
Option 1 ID : **441009114191**
Option 2 ID : **441009114193**
Option 3 ID : **441009114194**
Option 4 ID : **441009114192**

QuickSarkari.com | WhatsApp Channel | Telegram: t.me/quick_sarkari

Comprehension:

Read the given passage and answer the questions that follow.

The night was routine, the sky clear, as Malaysia Airlines Flight MH370 soared above the South China Sea. The Boeing 777, carrying 239 passengers and crew, had just begun its journey from Kuala Lumpur to Beijing. Inside the cabin, travellers settled in—some asleep, others watching movies, unaware that they were part of what would become one of aviation's greatest mysteries.

At 1:19 a.m., the pilot's calm voice radioed air traffic control: "Good night, Malaysian three-seven-zero." Minutes later, the plane vanished from radar. No distress signal. No final call. Just silence. As confusion turned to panic, search teams scrambled across vast oceans, chasing scattered leads. Satellite data suggested the aircraft had veered off course, flying for hours into the remote Indian Ocean.

Despite the largest and most expensive search effort in aviation history, only a few debris pieces were ever found. Theories arose—mechanical failure, pilot intervention, hijacking—but the truth remained elusive. Families waited for answers that never came.

Even today, the fate of MH370 haunts the world. It is a chilling reminder of how, in an age of technology, a massive aircraft can simply disappear—leaving behind only questions, grief and an endless sky.

SubQuestion No : 17

Q.17 What is one of the biggest challenges in solving the MH370 mystery?

Ans

✗ 1. The absence of eyewitnesses in the cockpit

✗ 2. The clear recordings of the final moments of the flight

✓ 3. The remote location where the plane is believed to have crashed

✗ 4. The overwhelming amount of evidence collected

Question ID : **44100928668**
Option 1 ID : **441009114195**
Option 2 ID : **441009114198**
Option 3 ID : **441009114196**
Option 4 ID : **441009114197**

QuickSarkari.com | WhatsApp Channel | Telegram: t.me/quick_sarkari

Comprehension:

Read the given passage and answer the questions that follow.

The night was routine, the sky clear, as Malaysia Airlines Flight MH370 soared above the South China Sea. The Boeing 777, carrying 239 passengers and crew, had just begun its journey from Kuala Lumpur to Beijing. Inside the cabin, travellers settled in—some asleep, others watching movies, unaware that they were part of what would become one of aviation's greatest mysteries.

At 1:19 a.m., the pilot's calm voice radioed air traffic control: "Good night, Malaysian three-seven-zero." Minutes later, the plane vanished from radar. No distress signal. No final call. Just silence. As confusion turned to panic, search teams scrambled across vast oceans, chasing scattered leads. Satellite data suggested the aircraft had veered off course, flying for hours into the remote Indian Ocean.

Despite the largest and most expensive search effort in aviation history, only a few debris pieces were ever found. Theories arose—mechanical failure, pilot intervention, hijacking—but the truth remained elusive. Families waited for answers that never came.

Even today, the fate of MH370 haunts the world. It is a chilling reminder of how, in an age of technology, a massive aircraft can simply disappear—leaving behind only questions, grief and an endless sky.

SubQuestion No : 18

Q.18 What does the search for MH370 highlight about modern aviation?

Ans

✔ 1. The challenges of tracking planes over vast oceans

✘ 2. The ability of technology to prevent aircraft disappearances

✘ 3. The efficiency of aviation safety protocols

✘ 4. The importance of passenger cooperation during flights

Question ID : **44100928669**
Option 1 ID : **441009114201**
Option 2 ID : **441009114200**
Option 3 ID : **441009114199**
Option 4 ID : **441009114202**

QuickSarkari.com | WhatsApp Channel | Telegram: t.me/quick_sarkari

Comprehension:

Read the given passage and answer the questions that follow.

The night was routine, the sky clear, as Malaysia Airlines Flight MH370 soared above the South China Sea. The Boeing 777, carrying 239 passengers and crew, had just begun its journey from Kuala Lumpur to Beijing. Inside the cabin, travellers settled in—some asleep, others watching movies, unaware that they were part of what would become one of aviation's greatest mysteries.

At 1:19 a.m., the pilot's calm voice radioed air traffic control: "Good night, Malaysian three-seven-zero." Minutes later, the plane vanished from radar. No distress signal. No final call. Just silence. As confusion turned to panic, search teams scrambled across vast oceans, chasing scattered leads. Satellite data suggested the aircraft had veered off course, flying for hours into the remote Indian Ocean.

Despite the largest and most expensive search effort in aviation history, only a few debris pieces were ever found. Theories arose—mechanical failure, pilot intervention, hijacking—but the truth remained elusive. Families waited for answers that never came.

Even today, the fate of MH370 haunts the world. It is a chilling reminder of how, in an age of technology, a massive aircraft can simply disappear—leaving behind only questions, grief and an endless sky.

SubQuestion No : 19

Q.19 **Select the most appropriate ANTONYM of the word 'elusive' in the context of the MH370 investigation.**

Ans
✗ 1. Hidden

✓ 2. Obvious

✗ 3. Unclear

✗ 4. Mysterious

Question ID : **44100928670**
Option 1 ID : **441009114203**
Option 2 ID : **441009114204**
Option 3 ID : **441009114205**
Option 4 ID : **441009114206**

QuickSarkari.com | WhatsApp Channel | Telegram: t.me/quick_sarkari

Comprehension:

Read the given passage and answer the questions that follow.

The night was routine, the sky clear, as Malaysia Airlines Flight MH370 soared above the South China Sea. The Boeing 777, carrying 239 passengers and crew, had just begun its journey from Kuala Lumpur to Beijing. Inside the cabin, travellers settled in—some asleep, others watching movies, unaware that they were part of what would become one of aviation's greatest mysteries.

At 1:19 a.m., the pilot's calm voice radioed air traffic control: "Good night, Malaysian three-seven-zero." Minutes later, the plane vanished from radar. No distress signal. No final call. Just silence. As confusion turned to panic, search teams scrambled across vast oceans, chasing scattered leads. Satellite data suggested the aircraft had veered off course, flying for hours into the remote Indian Ocean.

Despite the largest and most expensive search effort in aviation history, only a few debris pieces were ever found. Theories arose—mechanical failure, pilot intervention, hijacking—but the truth remained elusive. Families waited for answers that never came.

Even today, the fate of MH370 haunts the world. It is a chilling reminder of how, in an age of technology, a massive aircraft can simply disappear—leaving behind only questions, grief and an endless sky.

SubQuestion No : 20

Q.20 What is the overall tone of the passage?

Ans
✗ 1. Hopeful and optimistic
✓ 2. Mysterious and tragic
✗ 3. Aggressive and confrontational
✗ 4. Humorous and lighthearted

Question ID : **44100928671**
Option 1 ID : **441009114208**
Option 2 ID : **441009114207**
Option 3 ID : **441009114210**
Option 4 ID : **441009114209**

Section : Hindi Language and Comprehension

Q.1 निम्नलिखित वाक्यों को ध्यान से पढ़कर दिए गए विकल्पों में से उचित क्रम चुनिए –

1. दूसरी मस्तिष्क की
2. मनुष्य की समस्याएँ दो प्रकार की हैं
3. किन्तु प्रत्येक मनुष्य की अंतिम परिणति मृत्यु है
4. एक समस्या शरीर की है

Ans
✗ 1. 4, 1, 3, 2
✓ 2. 2, 4, 1, 3
✗ 3. 1, 3, 4, 2
✗ 4. 3, 2, 4, 1

Question ID : **441009317109**
Option 1 ID : **4410091234932**
Option 2 ID : **4410091234930**
Option 3 ID : **4410091234931**
Option 4 ID : **4410091234933**

Q.2 निम्नलिखित वाक्य के रेखांकित शब्द का पर्यायवाची कौन-सा नहीं है?
'मेरी माँ मुझे बहुत प्रेम करती है।'

Ans
✔ 1. पूजनीय
✘ 2. मैया
✘ 3. माता
✘ 4. जननी

Question ID : 4410091530834
Option 1 ID : 4410096046420
Option 2 ID : 4410096046421
Option 3 ID : 4410096046419
Option 4 ID : 4410096046422

Q.3 दिये गए वाक्य के रेखांकित शब्द का विलोम शब्द चुनिए -

साहित्यकार ने कहानी के माध्यम से सामाजिक व्यवस्था की आलोचना परोक्ष रूप से की।

Ans
✘ 1. अप्रत्यक्ष
✔ 2. प्रत्यक्ष
✘ 3. प्रमाण
✘ 4. साक्ष्य

Question ID : 4410091547314
Option 1 ID : 4410096112126
Option 2 ID : 4410096112123
Option 3 ID : 4410096112124
Option 4 ID : 4410096112125

Q.4 दिए गए वाक्य को सही क्रम में लगाइए-
(1)रोज (2)करना (3)व्यायाम (4)हमें (5)चाहिए

Ans
✔ 1. 4 1 3 2 5
✘ 2. 1 2 3 4 5
✘ 3. 5 1 3 2 4
✘ 4. 3 4 5 1 2

Question ID : 4410091141423
Option 1 ID : 4410094500648
Option 2 ID : 4410094500649
Option 3 ID : 4410094500651
Option 4 ID : 4410094500650

QuickSarkari.com | WhatsApp Channel | Telegram: t.me/quick_sarkari

Q.5 निम्न में से 'ताल ठोंकना' मुहावरे का सही अर्थ कौन-सा है ?

Ans
✗ 1. नष्ट-भ्रष्ट होना
✗ 2. बुरे दिन आना
✓ 3. लड़ने के लिए ललकार देना
✗ 4. इशारों पर चलना

Question ID : 4410091626221
Option 1 ID : 4410096423283
Option 2 ID : 4410096423282
Option 3 ID : 4410096423281
Option 4 ID : 4410096423284

Q.6 निम्नलिखित वाक्य में से वर्तनी त्रुटि की पहचान कर वाक्य को शुद्ध कीजिए।
'भरथ, अपने बड़े भाई श्रीराम के प्रति गहरी निष्ठा और सम्मान का भाव रखते थे।'

Ans
✓ 1. भरथ
✗ 2. निष्ठा
✗ 3. सम्मान
✗ 4. प्रति

Question ID : 4410091629715
Option 1 ID : 4410096436949
Option 2 ID : 4410096436946
Option 3 ID : 4410096436947
Option 4 ID : 4410096436948

Q.7 नीचे दिए गए वाक्यों में से वर्तनी की दृष्टि से शुद्ध वाक्य का चयन कीजिए।

Ans
✓ 1. अत्यधिक दुःख सहा नहीं जाता ।
✗ 2. संसारिक समस्या क्या है ?
✗ 3. मालन ताज़ा फूल लाई है।
✗ 4. यह नेता मंत्रीपरिषद् में नहीं है।

Question ID : 4410091526753
Option 1 ID : 4410096030123
Option 2 ID : 4410096030122
Option 3 ID : 4410096030125
Option 4 ID : 4410096030124

QuickSarkari.com | WhatsApp Channel | Telegram: t.me/quick_sarkari

Q.8 उपयुक्त 'क्रिया-विशेषण' का चयन कर रिक्त स्थान की पूर्ति कीजिए ।
'कल .....से बारिश होने लगी थी।'

Ans
✔ 1. अचानक
✗ 2. घर -घर
✗ 3. दिन -रात
✗ 4. ठीक

Question ID : 4410091524873
Option 1 ID : 4410096022696
Option 2 ID : 4410096022698
Option 3 ID : 4410096022697
Option 4 ID : 4410096022695

Q.9 निम्नलिखित में से किस मुहावरे का अर्थ संगत नहीं है?

Ans
✗ 1. फट पड़ना - एकदम गुस्से में हो जाना
✗ 2. सिट्टी-पिट्टी गुम हो जाना - होश उड़ जाना
✔ 3. सोने का घर मिट्टी कर देना - आने-जाने की जल्दी मचाना
✗ 4. हवा के घोड़े पर सवार होना - आने-जाने की जल्दी मचाना

Question ID : 4410091626157
Option 1 ID : 4410096423029
Option 2 ID : 4410096423031
Option 3 ID : 4410096423032
Option 4 ID : 4410096423030

Q.10 सही क्रिया का चयन कर वाक्य को पूर्ण कीजिए।
सानिया पिंजड़े से तोता .....देती है।

Ans
✗ 1. सिला
✗ 2. बैठा
✔ 3. उड़ा
✗ 4. खिला

Question ID : 4410091253828
Option 1 ID : 4410094948372
Option 2 ID : 4410094948370
Option 3 ID : 4410094948369
Option 4 ID : 4410094948371

QuickSarkari.com | WhatsApp Channel | Telegram: t.me/quick_sarkari

Q.11 निम्नलिखित वाक्य में रेखांकित शब्द के पर्यायवाची शब्द का चयन दिए गए विकल्पों में से कीजिए-
शरद पूर्णिमा के 'चाँद' की छटा ही निराली होती है।

Ans
✗ 1. दिवाकर
✓ 2. इन्दु
✗ 3. मोहिनी
✗ 4. रत्नेश

Question ID : 4410091618506
Option 1 ID : 4410096392896
Option 2 ID : 4410096392895
Option 3 ID : 4410096392897
Option 4 ID : 4410096392898

Q.12 निम्न में से 'अंगारों पर पैर रखना' मुहावरे का सही अर्थ बताइए -

Ans
✗ 1. अपने को होशियार समझना
✗ 2. कुछ दिनों की शानोशौकत
✓ 3. जान-बूझकर हानिकारक कार्य करना
✗ 4. रहने का संयोग न होना

Question ID : 4410091526270
Option 1 ID : 4410096028200
Option 2 ID : 4410096028198
Option 3 ID : 4410096028201
Option 4 ID : 4410096028199

Q.13 निम्नांकित विकल्पों में से उचित कारक चिन्ह का चयन करके वाक्य पूर्ण करें-
सभी बच्चों ..... मिलकर अपने विद्यालय के मैदान की सफाई की।

Ans
✗ 1. से
✗ 2. को
✗ 3. के
✓ 4. ने

Question ID : 4410091254718
Option 1 ID : 4410094951855
Option 2 ID : 4410094951857
Option 3 ID : 4410094951856
Option 4 ID : 4410094951854

QuickSarkari.com | WhatsApp Channel | Telegram: t.me/quick_sarkari

Q.14 उचित विशेषण शब्द चुनकर वाक्य पूरा कीजिए।
' _____ गधा भागा जा रहा है। '

Ans
✔ 1. वह
✘ 2. वे
✘ 3. जिस
✘ 4. जितना

Question ID : 4410091288612
Option 1 ID : 4410095086320
Option 2 ID : 4410095086318
Option 3 ID : 4410095086319
Option 4 ID : 4410095086321

Q.15 उपयुक्त अधिकरण कारक के प्रयोग से वाक्य को पूर्ण कीजिए।
बच्चा पलंग ..... सोया है।

Ans
✔ 1. पर
✘ 2. के लिए
✘ 3. से
✘ 4. में

Question ID : 4410091251181
Option 1 ID : 4410094937906
Option 2 ID : 4410094937905
Option 3 ID : 4410094937908
Option 4 ID : 4410094937907

Comprehension:

निम्नलिखित गद्यांश के आधार पर पूछे गए प्रश्नों के सही विकल्प का चयन करें-
हमारी सर्वोच्च प्राथमिकता जनसंख्या वृद्धि रोकना है। यह स्पष्ट है कि परिवार के आकार पर आर्थिक विकास और शिक्षा का बहुत प्रभाव पड़ता है। यहाँ आर्थिक विकास का मतलब पाश्चात्य मतानुसार भौतिकवाद नहीं जहाँ बच्चों को बोझ माना जाता है। हमारे लिए तो यह सम्मानपूर्वक जीने के स्तर से सम्बन्धित है। यह मौजूदा सम्पत्ति के समतामूलक विवरण पर ही निर्भर नहीं है वरन् ऐसी शैली अपनाने से सम्बन्धित है जिसमें अस्सी करोड़ लोगों की ऊर्जा का बेहतर इस्तेमाल हो सके। इसी प्रकार स्त्री-शिक्षा भी है। यह समाज में एक नए प्रकार का चिन्तन पैदा करेगी जिससे सामाजिक और आर्थिक विकास के नए आयाम खुलेंगे और साथ ही बच्चों के विकास का नया रास्ता भी खुलेगा। अतः जनसंख्या की समस्या सामाजिक है। यह अकेले सरकार नहीं सुलझा सकती। केन्द्रीयकरण से हटकर इसे ग्राम-ग्राम, व्यक्ति-व्यक्ति तक पहुँचाना होगा। जब तक यह जन आन्दोलन नहीं बन जाता तब तक सफलता मिलना संदिग्ध है।

SubQuestion No : 16

Q.16 परिवार के आकार को मुख्य रूप से कौन से दो कारक प्रभावित करते हैं?

Ans
✘ 1. सरकारी कानून और दंड
✘ 2. शहरीकरण और आधुनिकता
✔ 3. आर्थिक विकास और शिक्षा
✘ 4. धार्मिक मान्यताएँ और परंपराएँ

Question ID : 4410091617864
Option 1 ID : 4410096390342
Option 2 ID : 4410096390339
Option 3 ID : 4410096390340
Option 4 ID : 4410096390341

Comprehension:

निम्नलिखित गद्यांश के आधार पर पूछे गए प्रश्नों के सही विकल्प का चयन करें-
हमारी सर्वोच्च प्राथमिकता जनसंख्या वृद्धि रोकना है। यह स्पष्ट है कि परिवार के आकार पर आर्थिक विकास और शिक्षा का बहुत प्रभाव पड़ता है। यहाँ आर्थिक विकास का मतलब पाश्चात्य मतानुसार भौतिकवाद नहीं जहाँ बच्चों को बोझ माना जाता है। हमारे लिए तो यह सम्मानपूर्वक जीने के स्तर से सम्बन्धित है। यह मौजूदा सम्पत्ति के समतामूलक विवरण पर ही निर्भर नहीं है वरन् ऐसी शैली अपनाने से सम्बन्धित है जिसमें अस्सी करोड़ लोगों की ऊर्जा का बेहतर इस्तेमाल हो सके। इसी प्रकार स्त्री-शिक्षा भी है। यह समाज में एक नए प्रकार का चिन्तन पैदा करेगी जिससे सामाजिक और आर्थिक विकास के नए आयाम खुलेंगे और साथ ही बच्चों के विकास का नया रास्ता भी खुलेगा। अतः जनसंख्या की समस्या सामाजिक है। यह अकेले सरकार नहीं सुलझा सकती। केन्द्रीयकरण से हटकर इसे ग्राम-ग्राम, व्यक्ति-व्यक्ति तक पहुँचाना होगा। जब तक यह जन आन्दोलन नहीं बन जाता तब तक सफलता मिलना संदिग्ध है।

SubQuestion No : 17

Q.17 **लेखक के अनुसार 'आर्थिक विकास' का भारतीय संदर्भ में क्या अर्थ है?**

Ans
✗ 1. विदेशी निवेश में वृद्धि करना
✗ 2. केवल संपत्ति का समान वितरण करना
✗ 3. पाश्चात्य भौतिकवाद को अपनाना
✓ 4. सम्मानपूर्वक जीने के स्तर को प्राप्त करना

Question ID : **4410091617865**
Option 1 ID : **4410096390345**
Option 2 ID : **4410096390346**
Option 3 ID : **4410096390343**
Option 4 ID : **4410096390344**

Comprehension:

निम्नलिखित गद्यांश के आधार पर पूछे गए प्रश्नों के सही विकल्प का चयन करें-
हमारी सर्वोच्च प्राथमिकता जनसंख्या वृद्धि रोकना है। यह स्पष्ट है कि परिवार के आकार पर आर्थिक विकास और शिक्षा का बहुत प्रभाव पड़ता है। यहाँ आर्थिक विकास का मतलब पाश्चात्य मतानुसार भौतिकवाद नहीं जहाँ बच्चों को बोझ माना जाता है। हमारे लिए तो यह सम्मानपूर्वक जीने के स्तर से सम्बन्धित है। यह मौजूदा सम्पत्ति के समतामूलक विवरण पर ही निर्भर नहीं है वरन् ऐसी शैली अपनाने से सम्बन्धित है जिसमें अस्सी करोड़ लोगों की ऊर्जा का बेहतर इस्तेमाल हो सके। इसी प्रकार स्त्री-शिक्षा भी है। यह समाज में एक नए प्रकार का चिन्तन पैदा करेगी जिससे सामाजिक और आर्थिक विकास के नए आयाम खुलेंगे और साथ ही बच्चों के विकास का नया रास्ता भी खुलेगा। अतः जनसंख्या की समस्या सामाजिक है। यह अकेले सरकार नहीं सुलझा सकती। केन्द्रीयकरण से हटकर इसे ग्राम-ग्राम, व्यक्ति-व्यक्ति तक पहुँचाना होगा। जब तक यह जन आन्दोलन नहीं बन जाता तब तक सफलता मिलना संदिग्ध है।

SubQuestion No : 18

Q.18 **स्त्री-शिक्षा को जनसंख्या नियंत्रण में क्यों महत्त्वपूर्ण माना गया है?**

Ans
✓ 1. यह समाज में नया चिंतन पैदा करती है
✗ 2. यह सरकारी बोझ कम करती है
✗ 3. इससे जनसंख्या का केंद्रीकरण रुकता है
✗ 4. इससे स्त्रियाँ केवल नौकरी कर सकेंगी

Question ID : **4410091617866**
Option 1 ID : **4410096390350**
Option 2 ID : **4410096390348**
Option 3 ID : **4410096390349**
Option 4 ID : **4410096390347**

QuickSarkari.com | WhatsApp Channel | Telegram: t.me/quick_sarkari

Comprehension:

निम्नलिखित गद्यांश के आधार पर पूछे गए प्रश्नों के सही विकल्प का चयन करें-
हमारी सर्वोच्च प्राथमिकता जनसंख्या वृद्धि रोकना है। यह स्पष्ट है कि परिवार के आकार पर आर्थिक विकास और शिक्षा का बहुत प्रभाव पड़ता है। यहाँ आर्थिक विकास का मतलब पाश्चात्य मतानुसार भौतिकवाद नहीं जहाँ बच्चों को बोझ माना जाता है। हमारे लिए तो यह सम्मानपूर्वक जीने के स्तर से सम्बन्धित है। यह मौजूदा सम्पत्ति के समतामूलक विवरण पर ही निर्भर नहीं है वरन् ऐसी शैली अपनाने से सम्बन्धित है जिसमें अस्सी करोड़ लोगों की ऊर्जा का बेहतर इस्तेमाल हो सके। इसी प्रकार स्त्री-शिक्षा भी है। यह समाज में एक नए प्रकार का चिन्तन पैदा करेगी जिससे सामाजिक और आर्थिक विकास के नए आयाम खुलेंगे और साथ ही बच्चों के विकास का नया रास्ता भी खुलेगा। अतः जनसंख्या की समस्या सामाजिक है। यह अकेले सरकार नहीं सुलझा सकती। केन्द्रीयकरण से हटकर इसे ग्राम-ग्राम, व्यक्ति-व्यक्ति तक पहुँचाना होगा। जब तक यह जन आन्दोलन नहीं बन जाता तब तक सफलता मिलना संदिग्ध है।

SubQuestion No : 19

Q.19 **जनसंख्या नियंत्रण में सफलता मिलने की संभावना कब तक संदिग्ध है?**

Ans
✗ 1. जब तक सरकार कड़े नियम न बनाए

✗ 2. जब तक अस्सी करोड़ लोग शिक्षित न हो जाएँ

✗ 3. जब तक नई तकनीक न आ जाए

✓ 4. जब तक यह एक जन आंदोलन नहीं बन जाता

Question ID : **4410091617867**
Option 1 ID : **4410096390354**
Option 2 ID : **4410096390353**
Option 3 ID : **4410096390351**
Option 4 ID : **4410096390352**

Comprehension:

निम्नलिखित गद्यांश के आधार पर पूछे गए प्रश्नों के सही विकल्प का चयन करें-
हमारी सर्वोच्च प्राथमिकता जनसंख्या वृद्धि रोकना है। यह स्पष्ट है कि परिवार के आकार पर आर्थिक विकास और शिक्षा का बहुत प्रभाव पड़ता है। यहाँ आर्थिक विकास का मतलब पाश्चात्य मतानुसार भौतिकवाद नहीं जहाँ बच्चों को बोझ माना जाता है। हमारे लिए तो यह सम्मानपूर्वक जीने के स्तर से सम्बन्धित है। यह मौजूदा सम्पत्ति के समतामूलक विवरण पर ही निर्भर नहीं है वरन् ऐसी शैली अपनाने से सम्बन्धित है जिसमें अस्सी करोड़ लोगों की ऊर्जा का बेहतर इस्तेमाल हो सके। इसी प्रकार स्त्री-शिक्षा भी है। यह समाज में एक नए प्रकार का चिन्तन पैदा करेगी जिससे सामाजिक और आर्थिक विकास के नए आयाम खुलेंगे और साथ ही बच्चों के विकास का नया रास्ता भी खुलेगा। अतः जनसंख्या की समस्या सामाजिक है। यह अकेले सरकार नहीं सुलझा सकती। केन्द्रीयकरण से हटकर इसे ग्राम-ग्राम, व्यक्ति-व्यक्ति तक पहुँचाना होगा। जब तक यह जन आन्दोलन नहीं बन जाता तब तक सफलता मिलना संदिग्ध है।

SubQuestion No : 20

Q.20 **लेखक ने 'केंद्रीकरण' के विरुद्ध क्या सुझाव दिया है?**

Ans
✗ 1. सिर्फ शहरों में अस्पताल खोलना

✗ 2. विदेशी मॉडल को पूर्णतः लागू करना

✗ 3. सभी शक्तियाँ केंद्र सरकार को देना

✓ 4. योजना को ग्राम और व्यक्ति स्तर तक पहुँचाना

Question ID : **4410091617868**
Option 1 ID : **4410096390356**
Option 2 ID : **4410096390358**
Option 3 ID : **4410096390355**
Option 4 ID : **4410096390357**

Section : **Discipline1**

QuickSarkari.com | WhatsApp Channel | Telegram: t.me/quick_sarkari

Q.1 Which principle of growth and development explains why children gain control of their head and upper body movements before they can control their legs and feet?

Ans
✗ 1. Proximodistal principle
✗ 2. Maturation
✗ 3. Principle of individual differences
✓ 4. Cephalocaudal principle

Question ID : **4410091607639**
Option 1 ID : **4410096349521**
Option 2 ID : **4410096349522**
Option 3 ID : **4410096349523**
Option 4 ID : **4410096349520**

Q.2 How did the implementation of the Universalization of Elementary Education (UEE) impact the demand for secondary education in India?

Ans
✗ 1. It had no impact on secondary education
✗ 2. It decreased household interest in education
✗ 3. It reduced the need for secondary schools
✓ 4. It increased the demand for secondary education

Question ID : **4410091679541**
Option 1 ID : **4410096626350**
Option 2 ID : **4410096626351**
Option 3 ID : **4410096626349**
Option 4 ID : **4410096626352**

Q.3 During which stage do children develop the ability to understand that objects continue to exist even when out of sight?

Ans
✗ 1. Formal operational stage
✗ 2. Pre-operational stage
✗ 3. Concrete operational stage
✓ 4. Sensorimotor stage

Question ID : **4410091630960**
Option 1 ID : **4410096442069**
Option 2 ID : **4410096442066**
Option 3 ID : **4410096442068**
Option 4 ID : **4410096442067**

QuickSarkari.com | WhatsApp Channel | Telegram: t.me/quick_sarkari

Q.4 A teacher in Varanasi wants to promote motor development in infants. Which activity would best support the development of both gross and fine motor skills in children under one year?

Ans
✗ 1. Encouraging group games that involve running and jumping

✓ 2. Providing tummy time and offering colorful blocks to grasp

✗ 3. Teaching children to button shirts and tie shoelaces

✗ 4. Reading picture books aloud and singing lullabies daily

Question ID : **4410091604042**
Option 1 ID : **4410096335360**
Option 2 ID : **4410096335358**
Option 3 ID : **4410096335361**
Option 4 ID : **4410096335359**

Q.5 According to Piaget's theory, which cognitive ability marks the preoperational stage in children?

Ans
✗ 1. Ability to solve complex logical problems

✓ 2. Ability to use symbols and language

✗ 3. Ability to understand conservation of mass

✗ 4. Ability to think in abstract terms

Question ID : **4410091630109**
Option 1 ID : **4410096438544**
Option 2 ID : **4410096438542**
Option 3 ID : **4410096438543**
Option 4 ID : **4410096438545**

Q.6 What does 'socialization' primarily refer to in the context of education?

Ans
✗ 1. The process of learning a new language for communication in diverse settings.

✗ 2. The process of teaching only academic subjects like math and science in classrooms.

✗ 3. The act of forming friendships only in school environments with peer groups.

✓ 4. The process by which individuals learn and adopt the norms, values, and behaviors of their society.

Question ID : **4410091605830**
Option 1 ID : **4410096342371**
Option 2 ID : **4410096342369**
Option 3 ID : **4410096342370**
Option 4 ID : **4410096342368**

QuickSarkari.com | WhatsApp Channel | Telegram: t.me/quick_sarkari

Q.7 Which of the following best defines a curriculum in the context of education?

Ans
✗ 1. A schedule of school holidays and events
✗ 2. A list of textbooks used in a school
✗ 3. A collection of exam papers
✓ 4. A planned set of learning experiences

Question ID : **4410091649679**
Option 1 ID : **4410096514848**
Option 2 ID : **4410096514847**
Option 3 ID : **4410096514849**
Option 4 ID : **4410096514846**

Q.8 As stated in its report, a major focus of the Mudaliar Commission was ____.

Ans
✗ 1. Extending preschool
✗ 2. Expanding universities
✗ 3. Reforming textbooks
✓ 4. Improving secondary education

Question ID : **4410091539543**
Option 1 ID : **4410096081509**
Option 2 ID : **4410096081511**
Option 3 ID : **4410096081510**
Option 4 ID : **4410096081512**

Q.9 Which factors contribute to the development of personality according to Cole and Bruce?

Ans
✓ 1. Genetic endowment and cultural environment
✗ 2. Physical health and intelligence
✗ 3. Social interactions and environment
✗ 4. Economic status and education

Question ID : **4410091648482**
Option 1 ID : **4410096510152**
Option 2 ID : **4410096510153**
Option 3 ID : **4410096510155**
Option 4 ID : **4410096510154**

QuickSarkari.com | WhatsApp Channel | Telegram: t.me/quick_sarkari

Q.10 Which principle of growth and development is demonstrated when a child learns to control movements from the head downward?

Ans
✔ 1. Cephalocaudal principle
✘ 2. Equifinality principle
✘ 3. Proximal-distal principle
✘ 4. Reciprocal principle

Question ID : **4410091630111**
Option 1 ID : **4410096438550**
Option 2 ID : **4410096438552**
Option 3 ID : **4410096438553**
Option 4 ID : **4410096438551**

Q.11 Which provision of the RTE Act, 2009 most directly represents the core intent of Universalisation of Elementary Education (UEE)?

Ans
✘ 1. Requiring periodic evaluation and qualification norms for teachers to improve instructional quality
✘ 2. Extending nutritional support through school-based welfare schemes to enhance retention
✘ 3. Encouraging infrastructure development and partnerships to expand educational capacity
✔ 4. Mandating the State to provide free and compulsory education to all children aged 6-14 years

Question ID : **4410091628615**
Option 1 ID : **4410096432608**
Option 2 ID : **4410096432607**
Option 3 ID : **4410096432609**
Option 4 ID : **4410096432606**

Q.12 During the evaluation of an educational reform proposal, critics argue it fails to uphold the 'democratic' values stated in the Preamble. Which reform measure would most clearly contradict the democratic ethos of the Constitution?

Ans
✘ 1. Introducing transparent financial audits for school funds
✘ 2. Allowing periodic feedback from parents and teachers
✔ 3. Centralizing all decision making without stakeholder involvement
✘ 4. Setting up student councils for school activities

Question ID : **4410091621481**
Option 1 ID : **4410096404728**
Option 2 ID : **4410096404729**
Option 3 ID : **4410096404727**
Option 4 ID : **4410096404730**

QuickSarkari.com | WhatsApp Channel | Telegram: t.me/quick_sarkari

Q.13 A state government is reviewing pupil-teacher ratios in its upper primary schools to comply with RTE standards. Which ratio should the state aim for, according to the Act?

Ans
✔ 1. A pupil-teacher ratio of 35:1 in upper primary schools
✘ 2. A pupil-teacher ratio of 25:1 in upper primary schools
✘ 3. A pupil-teacher ratio of 20:1 in upper primary schools
✘ 4. A pupil-teacher ratio of 50:1 in upper primary schools

Question ID : **4410091682713**
Option 1 ID : **4410096638106**
Option 2 ID : **4410096638108**
Option 3 ID : **4410096638109**
Option 4 ID : **4410096638107**

Q.14 What learning context distinguishes primary socialization?

Ans
✘ 1. Formal institutional rules
✘ 2. Specialized curriculum input
✔ 3. Affective familial orientation
✘ 4. Objective competitive thinking

Question ID : **4410091557181**
Option 1 ID : **4410096151282**
Option 2 ID : **4410096151284**
Option 3 ID : **4410096151283**
Option 4 ID : **4410096151281**

Q.15 Which developmental process best explains why fine motor skills typically mature later than gross motor skills in early childhood?

Ans
✘ 1. Social learning
✘ 2. Cephalocaudal development
✔ 3. Proximodistal development
✘ 4. Cognitive maturation

Question ID : **4410091538052**
Option 1 ID : **4410096075476**
Option 2 ID : **4410096075474**
Option 3 ID : **4410096075473**
Option 4 ID : **4410096075475**

QuickSarkari.com | WhatsApp Channel | Telegram: t.me/quick_sarkari

Q.16 A teacher forms mixed groups to help students from different languages and religions work together. What societal feature is she addressing?

Ans
✗ 1. Structural functional interdependence
✗ 2. Normative social control mechanisms
✓ 3. Cultural and social diversity within society
✗ 4. Social stratification through institutional roles

Question ID : **4410091567590**
Option 1 ID : **4410096191663**
Option 2 ID : **4410096191662**
Option 3 ID : **4410096191661**
Option 4 ID : **4410096191660**

Q.17 Which stage of childhood is typically marked by increased peer interaction and the development of basic social skills?

Ans
✗ 1. Middle childhood
✓ 2. Early childhood
✗ 3. Adolescence
✗ 4. Infancy

Question ID : **4410091607399**
Option 1 ID : **4410096348570**
Option 2 ID : **4410096348569**
Option 3 ID : **4410096348571**
Option 4 ID : **4410096348568**

Q.18 What is the most important aspect of socialization during infancy?

Ans
✗ 1. Learning social rules and norms
✗ 2. Development of language skills
✓ 3. Secure attachment with the caregiver
✗ 4. Formation of peer relationships

Question ID : **4410091679630**
Option 1 ID : **4410096626699**
Option 2 ID : **4410096626700**
Option 3 ID : **4410096626698**
Option 4 ID : **4410096626697**

QuickSarkari.com | WhatsApp Channel | Telegram: t.me/quick_sarkari

Q.19 A situation where more people are working than required is termed as _____.

Ans
✗ 1. Seasonal unemployment
✗ 2. Structural unemployment
✓ 3. Disguised unemployment
✗ 4. Cyclic unemployment

Question ID : **4410091544061**
Option 1 ID : **4410096099345**
Option 2 ID : **4410096099346**
Option 3 ID : **4410096099343**
Option 4 ID : **4410096099344**

Q.20 A child learns what behaviour is approved or disapproved through:

Ans
✗ 1. Heredity
✓ 2. Socialisation
✗ 3. Punishment only
✗ 4. Physical growth

Question ID : **4410091570638**
Option 1 ID : **4410096203529**
Option 2 ID : **4410096203528**
Option 3 ID : **4410096203527**
Option 4 ID : **4410096203530**

Section : **Discipline2**

Q.1 After participating in a simulated social studies debate, students are encouraged to connect their experience to academic concepts and apply these to a new community project. Which steps from Kolb's Experiential Learning Cycle does this most clearly illustrate?

Ans
✓ 1. Abstract conceptualization and active experimentation
✗ 2. Concrete experience and final assessment
✗ 3. Reflective observation and direct instruction
✗ 4. Memorization and passive note-taking

Question ID : **4410091606305**
Option 1 ID : **4410096344244**
Option 2 ID : **4410096344247**
Option 3 ID : **4410096344245**
Option 4 ID : **4410096344246**

QuickSarkari.com | WhatsApp Channel | Telegram: t.me/quick_sarkari

Q.2 How does language function differently inside and outside the classroom in relation to the curriculum?

Ans
✗ 1. Language serves the same purpose regardless of the setting.

✗ 2. Language outside the classroom is only used for entertainment.

✗ 3. Inside the classroom, language is informal; outside, it is always formal.

✓ 4. Language supports classroom learning and social communication.

Question ID : **4410091631458**
Option 1 ID : **4410096444050**
Option 2 ID : **4410096444051**
Option 3 ID : **4410096444049**
Option 4 ID : **4410096444048**

Q.3 When designing a peer tutoring program for a classroom, which method most effectively promotes mutual academic benefit for both tutors and tutees?

Ans
✗ 1. Focusing solely on group work

✗ 2. Assigning only high achievers as tutors

✓ 3. Rotating tutor and tutee roles regularly

✗ 4. Using only fixed student pairs

Question ID : **4410091678979**
Option 1 ID : **4410096624128**
Option 2 ID : **4410096624126**
Option 3 ID : **4410096624125**
Option 4 ID : **4410096624127**

Q.4 Which function does language serve outside the classroom environment?

Ans
✓ 1. Enabling communication, social interaction, and the sharing of ideas in everyday life.

✗ 2. Functioning solely as a tool for talking to oneself without involving others.

✗ 3. Serving primarily as a method for writing your feelings

✗ 4. Preserving cultural heritage without supporting interaction or understanding among people

Question ID : **4410091651106**
Option 1 ID : **4410096520534**
Option 2 ID : **4410096520535**
Option 3 ID : **4410096520536**
Option 4 ID : **4410096520537**

QuickSarkari.com | WhatsApp Channel | Telegram: t.me/quick_sarkari

Q.5 Which approach is a common method of a school's attempt to positively impact students' character by list of positive characteristics?

Ans
✔ 1. Value statement approach
✘ 2. Service learning
✘ 3. Social and emotional learning
✘ 4. Cognitive approach

Question ID : **4410091546665**
Option 1 ID : **4410096109539**
Option 2 ID : **4410096109541**
Option 3 ID : **4410096109540**
Option 4 ID : **4410096109542**

Q.6 A teacher in a multilingual classroom encourages students to share personal experiences in their home languages while discussing a science topic. Which characteristic of pedagogy is BEST demonstrated in this scenario?

Ans
✘ 1. Pedagogy is Goal-Oriented
✘ 2. Pedagogy is Reflective
✔ 3. Pedagogy is Contextual
✘ 4. Pedagogy is Value-Based

Question ID : **4410091683361**
Option 1 ID : **4410096640373**
Option 2 ID : **4410096640371**
Option 3 ID : **4410096640372**
Option 4 ID : **4410096640370**

Q.7 In peer tutoring, the tutor and tutee are usually _____.

Ans
✘ 1. Learners grouped randomly without planning
✘ 2. Students and school administrators
✔ 3. Students with varied levels of competence
✘ 4. Teachers and students of the same class

Question ID : **4410091578825**
Option 1 ID : **4410096236402**
Option 2 ID : **4410096236401**
Option 3 ID : **4410096236400**
Option 4 ID : **4410096236399**

QuickSarkari.com | WhatsApp Channel | Telegram: t.me/quick_sarkari

Q.8 What is a characteristic of mindfulness that distinguishes it from relaxation exercises?

Ans
✔ 1. Mindfulness involves active engagement with present experiences

✘ 2. Mindfulness is inherently religious and ritualistic

✘ 3. Mindfulness aims at achieving a state of no thoughts

✘ 4. Mindfulness focuses exclusively on physical relaxation

Question ID : **4410091652941**
Option 1 ID : **4410096527118**
Option 2 ID : **4410096527120**
Option 3 ID : **4410096527119**
Option 4 ID : **4410096527121**

Q.9 Which of the following statements best captures the role of literature in developing language skills among young learners?

Ans
✔ 1. Literature provides exposure to rich vocabulary, diverse structures, and cultural settings that support comprehension and critical thinking skills.

✘ 2. Literature is primarily a source of entertainment and contributes only minimally to meaningful language growth and development.

✘ 3. Literature is limited to grammar drills and memorization, offering little opportunity for contextual or creative language practice.

✘ 4. Literature can function as a complete substitute for guided instruction in reading, writing, and other essential language skills.

Question ID : **4410091542509**
Option 1 ID : **4410096093119**
Option 2 ID : **4410096093120**
Option 3 ID : **4410096093121**
Option 4 ID : **4410096093122**

Q.10 Which of the following is considered the primary and basic social group in society?

Ans
✘ 1. Office

✔ 2. Family

✘ 3. School

✘ 4. Club

Question ID : **4410091681703**
Option 1 ID : **4410096634189**
Option 2 ID : **4410096634186**
Option 3 ID : **4410096634187**
Option 4 ID : **4410096634188**

QuickSarkari.com | WhatsApp Channel | Telegram: t.me/quick_sarkari

Q.11 A university designs a mandatory life skills course emphasizing selfless action (nishkama karma). Which traditional Indian self-direction goal is the course primarily applying?

Ans
✗ 1. Achieving individual financial security
✗ 2. Realizing collective community strength
✓ 3. Eliminating subjective inner conflicts
✗ 4. Developing complex identity structures

Question ID : **4410091549903**
Option 1 ID : **4410096122295**
Option 2 ID : **4410096122296**
Option 3 ID : **4410096122297**
Option 4 ID : **4410096122298**

Q.12 A 5-year-old can form 5-word sentences, tell simple stories, and understand over 1,000 words. According to the key milestones, which supporting factor most likely contributed to this achievement?

Ans
✓ 1. Responsive talk, play, and access to books
✗ 2. Formal grammar drills and rote learning
✗ 3. Exclusive use of digital devices for reading
✗ 4. Peer group discussions on advanced literature

Question ID : **4410091606398**
Option 1 ID : **4410096344608**
Option 2 ID : **4410096344609**
Option 3 ID : **4410096344610**
Option 4 ID : **4410096344611**

Q.13 According to MacSwan's minimalist approach, what constrains code-switching?

Ans
✗ 1. Exclusive use of formal language
✗ 2. Universal prohibition of mixing languages
✓ 3. The requirements of the mixed grammars
✗ 4. Personal preference for one language

Question ID : **4410091644970**
Option 1 ID : **4410096496417**
Option 2 ID : **4410096496416**
Option 3 ID : **4410096496414**
Option 4 ID : **4410096496415**

QuickSarkari.com | WhatsApp Channel | Telegram: t.me/quick_sarkari

Q.14 While reviewing academic records, an administrator notices that all students are learning the same set of topics in mathematics across different schools. Which feature of the syllabus does this scenario highlight?

Ans
✗ 1. Promoting holistic development through activities
✓ 2. Maintaining uniform content standards for all students
✗ 3. Focusing on values and attitudes
✗ 4. Encouraging flexible learning experiences

Question ID : **4410091683107**
Option 1 ID : **4410096639555**
Option 2 ID : **4410096639556**
Option 3 ID : **4410096639557**
Option 4 ID : **4410096639554**

Q.15 Which term best describes the shared beliefs and values of a group that influence teaching approaches?

Ans
✗ 1. Classroom management
✗ 2. Curriculum design
✓ 3. Cultural world view
✗ 4. Contemporary icon

Question ID : **4410091696643**
Option 1 ID : **4410096692404**
Option 2 ID : **4410096692402**
Option 3 ID : **4410096692401**
Option 4 ID : **4410096692403**

Q.16 A local government is evaluating the long-term impact of education on its community. Using sociological insights, which evaluation method would best capture the broader effects of education on society?

Ans
✗ 1. Reviewing improvements in school facilities and learning resources
✗ 2. Analyzing longitudinal trends in standardized academic performance
✓ 3. Examining changes in social mobility and life opportunities across generations
✗ 4. Monitoring patterns of teacher attendance and workforce stability

Question ID : **4410091630355**
Option 1 ID : **4410096439572**
Option 2 ID : **4410096439570**
Option 3 ID : **4410096439573**
Option 4 ID : **4410096439571**

QuickSarkari.com | WhatsApp Channel | Telegram: t.me/quick_sarkari

Q.17 A teacher notices a shy student repeatedly avoiding eye contact during formal class questions. Applying observation principles, what immediate action should the teacher prioritize?

Ans
✗ 1. Prompting immediate vocal responses
✗ 2. Introducing immediate group work
✓ 3. Analyzing non-verbal communication cues
✗ 4. Interpreting cues as inherent traits

Question ID : **4410091549828**
Option 1 ID : **4410096122003**
Option 2 ID : **4410096122005**
Option 3 ID : **4410096122004**
Option 4 ID : **4410096122006**

Q.18 In a multilingual classroom, how can literature be used to support language development?

Ans
✗ 1. Choosing literature from a single cultural tradition exclusively.
✗ 2. Using only texts written in the national language for all students.
✓ 3. Selecting texts that reflect students' diverse linguistic backgrounds.
✗ 4. Avoiding stories that include code-switching or translanguaging.

Question ID : **4410091641512**
Option 1 ID : **4410096483161**
Option 2 ID : **4410096483160**
Option 3 ID : **4410096483159**
Option 4 ID : **4410096483162**

Q.19 What purpose does journal writing fulfil in the process of self-understanding?

Ans
✗ 1. To prepare for competitive exams
✗ 2. To write creative stories for entertainment
✓ 3. To reflect on personal experiences and thoughts
✗ 4. To memorize facts and figures

Question ID : **4410091636992**
Option 1 ID : **4410096465804**
Option 2 ID : **4410096465803**
Option 3 ID : **4410096465802**
Option 4 ID : **4410096465801**

QuickSarkari.com | WhatsApp Channel | Telegram: t.me/quick_sarkari

Q.20 According to Piaget's theory, which stage is most relevant for understanding how children begin to grasp fundamental mathematical concepts such as number conservation and ordering?

Ans
✗ 1. Formal operational stage
✓ 2. Concrete operational stage
✗ 3. Preoperational stage
✗ 4. Sensorimotor stage

Question ID : **4410091679049**
Option 1 ID : **4410096624404**
Option 2 ID : **4410096624403**
Option 3 ID : **4410096624402**
Option 4 ID : **4410096624401**

Section : **Discipline3**

Q.1 Which of the following best explains why individuals differ in their learning?

Ans
✗ 1. Learning depends solely on the learner's intelligence.
✓ 2. Learning is influenced by both personal and environmental factors.
✗ 3. Learning is entirely determined by the curriculum.
✗ 4. Learning differences are caused only by the teaching methods.

Question ID : **4410091576783**
Option 1 ID : **4410096227983**
Option 2 ID : **4410096227986**
Option 3 ID : **4410096227984**
Option 4 ID : **4410096227985**

Q.2 After a student incorrectly adds 5 + 3 as 9, the teacher discusses the student's reasoning and encourages exploration of the error. According to Piaget, what learning mechanism does this practice support?

Ans
✓ 1. Equilibration through self-regulation and reflection
✗ 2. Direct instruction for immediate correction
✗ 3. Mastery of hypothetical-deductive reasoning
✗ 4. Adoption of rote memorization strategies

Question ID : **4410091613386**
Option 1 ID : **4410096372378**
Option 2 ID : **4410096372380**
Option 3 ID : **4410096372379**
Option 4 ID : **4410096372381**

QuickSarkari.com | WhatsApp Channel | Telegram: t.me/quick_sarkari

Q.3 Which type of play is characterized by active interaction and organized activities among children aged five to six?

Ans
✗ 1. Parallel play
✗ 2. Onlooker play
✓ 3. Cooperative play
✗ 4. Associative play

Question ID : **4410091655713**
Option 1 ID : **4410096537816**
Option 2 ID : **4410096537817**
Option 3 ID : **4410096537819**
Option 4 ID : **4410096537818**

Q.4 Which sentence correctly follows the rules of subject-verb agreement?

Ans
✗ 1. He go to college every morning.
✗ 2. Students walks to college every morning.
✓ 3. She walks to college every morning.
✗ 4. They walks to college every morning.

Question ID : **4410091638801**
Option 1 ID : **4410096472782**
Option 2 ID : **4410096472783**
Option 3 ID : **4410096472781**
Option 4 ID : **4410096472780**

Q.5 Which option is an example of using correct grammar but inappropriate language in a classroom setting?

Ans
✗ 1. Would you mind repeating that?
✗ 2. Could you please explain that again?
✓ 3. Dude, could you explain that again?
✗ 4. May I ask for clarification?

Question ID : **4410091621191**
Option 1 ID : **4410096403571**
Option 2 ID : **4410096403570**
Option 3 ID : **4410096403572**
Option 4 ID : **4410096403569**

QuickSarkari.com | WhatsApp Channel | Telegram: t.me/quick_sarkari

Q.6 In a co-educational school, a male teacher feels uncomfortable discussing attendance issues privately with female students, leading to less support for them. Which aspect of teacher identity is influencing this classroom dynamic?

Ans
✔ 1. Personal gender identity shaping interactions
✘ 2. Curriculum content provided by textbooks
✘ 3. Peer influence among students
✘ 4. Strict adherence to classroom rules

Question ID : **4410091607608**
Option 1 ID : **4410096349392**
Option 2 ID : **4410096349394**
Option 3 ID : **4410096349395**
Option 4 ID : **4410096349393**

Q.7 Read the Assertion (A) and Reason (R) given below and choose the correct option.

Assertion (A): Understanding place value is essential for developing arithmetic skills in young learners.
Reason (R): Place value helps students distinguish between tens and units when solving addition problems.

Ans
✘ 1. Both A and R are incorrect.
✘ 2. A is correct, but R is incorrect.
✔ 3. Both A and R are correct, and R is the correct explanation of A.
✘ 4. Both A and R are correct, but R is not the correct explanation of A.

Question ID : **4410091609309**
Option 1 ID : **4410096356163**
Option 2 ID : **4410096356162**
Option 3 ID : **4410096356160**
Option 4 ID : **4410096356161**

Q.8 What does 'school effectiveness' primarily refer to?

Ans
✘ 1. Student enrollment
✔ 2. Goal achievement
✘ 3. Physical infrastructure
✘ 4. Teacher salary

Question ID : **4410091631445**
Option 1 ID : **4410096443998**
Option 2 ID : **4410096443996**
Option 3 ID : **4410096443997**
Option 4 ID : **4410096443999**

QuickSarkari.com | WhatsApp Channel | Telegram: t.me/quick_sarkari

Q.9 When learners display curiosity toward a topic, they engage more actively and achieve a deeper understanding. This illustrates the importance of:

Ans
✗ 1. Enforcing classroom rules
✓ 2. Fostering learner interest
✗ 3. Using punitive measures
✗ 4. Maintaining behavioural discipline

Question ID : **4410091546993**
Option 1 ID : **4410096110845**
Option 2 ID : **4410096110843**
Option 3 ID : **4410096110844**
Option 4 ID : **4410096110842**

Q.10 Which of the following alternatives in education emphasizes on learning from within and complete freedom of choice of mode of learning in early years?

Ans
✓ 1. Unschooling
✗ 2. Waldorf method
✗ 3. Democratic schooling
✗ 4. Montessori method

Question ID : **4410091546976**
Option 1 ID : **4410096110777**
Option 2 ID : **4410096110775**
Option 3 ID : **4410096110774**
Option 4 ID : **4410096110776**

Q.11 Which of the following is an essential psychological attitude for a good facilitator in education?

Ans
✗ 1. Being indifferent
✗ 2. Being impatient
✗ 3. Being strict
✓ 4. Being open-minded

Question ID : **4410091619501**
Option 1 ID : **4410096396862**
Option 2 ID : **4410096396863**
Option 3 ID : **4410096396860**
Option 4 ID : **4410096396861**

QuickSarkari.com | WhatsApp Channel | Telegram: t.me/quick_sarkari

Q.12 In educational discourse, the conventional concept of 'schooling' is fundamentally defined as a:

Ans
✔ 1. Structured learning process
✘ 2. Social environment
✘ 3. Community resource center
✘ 4. Unregulated open forum

Question ID : **4410091550780**
Option 1 ID : **4410096125404**
Option 2 ID : **4410096125403**
Option 3 ID : **4410096125406**
Option 4 ID : **4410096125405**

Q.13 What is an important role of principals as pedagogic leaders?

Ans
✔ 1. Empowering teachers with professional responsibility and supportive judgments
✘ 2. Designing or determining the national curriculum independently
✘ 3. Focusing solely on administrative duties
✘ 4. Directly managing and controlling all classroom instruction

Question ID : **4410091608321**
Option 1 ID : **4410096352200**
Option 2 ID : **4410096352203**
Option 3 ID : **4410096352202**
Option 4 ID : **4410096352201**

Q.14 A student fails an exam and claims the test was unfair, refusing to accept their own lack of preparation. Which defence mechanism does this illustrate?

Ans
✘ 1. Denial
✘ 2. Sublimation
✔ 3. Rationalization
✘ 4. Projection

Question ID : **4410091696847**
Option 1 ID : **4410096693192**
Option 2 ID : **4410096693195**
Option 3 ID : **4410096693193**
Option 4 ID : **4410096693194**

QuickSarkari.com | WhatsApp Channel | Telegram: t.me/quick_sarkari

Q.15 In a reflective session, Mr. Singh notices that some students are hesitant to express their opinions during debates. He decides to adopt storytelling and exploratory questioning in his teaching. What facilitation skills is Mr. Singh primarily utilising to foster engagement?

Ans
✗ 1. Strict classroom management and discipline
✗ 2. Assigning repetitive worksheet tasks
✓ 3. Active listening and exploratory questioning
✗ 4. Emphasizing rote memorization techniques

Question ID : **4410091616529**
Option 1 ID : **4410096385031**
Option 2 ID : **4410096385033**
Option 3 ID : **4410096385030**
Option 4 ID : **4410096385032**

Q.16 After a challenging term with mixed student results, Mr. Singh takes time to analyze his teaching methods and seeks feedback from students to improve his practice. Which aspect of teacher identity is he most demonstrating?

Ans
✗ 1. Learner-centred and inclusive
✓ 2. Reflective practitioner
✗ 3. Agent of change
✗ 4. Democratic and collaborative

Question ID : **4410091607562**
Option 1 ID : **4410096349219**
Option 2 ID : **4410096349217**
Option 3 ID : **4410096349218**
Option 4 ID : **4410096349216**

Q.17 Which sentence is grammatically correct and contextually appropriate for a business email?

Ans
✗ 1. I wants to discuss the project details with you tomorrow.
✓ 2. I would like to discuss the project details with you tomorrow.
✗ 3. I want discuss project details with you tomorrow.
✗ 4. I like discussing the project details with you tomorrow.

Question ID : **4410091641751**
Option 1 ID : **4410096484083**
Option 2 ID : **4410096484081**
Option 3 ID : **4410096484082**
Option 4 ID : **4410096484084**

QuickSarkari.com | WhatsApp Channel | Telegram: t.me/quick_sarkari

Q.18 What is a primary responsibility of a teacher in a school setting?

Ans
✔ 1. Facilitating learning
✘ 2. Publishing textbooks
✘ 3. Managing school finances
✘ 4. Designing building layouts

Question ID : **4410091630235**
Option 1 ID : **4410096439090**
Option 2 ID : **4410096439093**
Option 3 ID : **4410096439091**
Option 4 ID : **4410096439092**

Q.19 Which stage involves the ability to reason using pure symbols without perceptive data?

Ans
✘ 1. Sensorimotor
✘ 2. Preoperational
✔ 3. Formal Operational
✘ 4. Concrete Operational

Question ID : **4410091655169**
Option 1 ID : **4410096535641**
Option 2 ID : **4410096535642**
Option 3 ID : **4410096535644**
Option 4 ID : **4410096535643**

Q.20 Which factor best supports the status of English as a global language?

Ans
✔ 1. Its wide use in global trade and technology.
✘ 2. Its complex grammar and extensive vocabulary.
✘ 3. Its use is limited to native English nations.
✘ 4. Its ancient origin in early European history.

Question ID : **4410091633795**
Option 1 ID : **4410096453270**
Option 2 ID : **4410096453271**
Option 3 ID : **4410096453273**
Option 4 ID : **4410096453272**

Section : **Discipline4**

QuickSarkari.com | WhatsApp Channel | Telegram: t.me/quick_sarkari

Q.1 Which is the first step in effective lesson planning according to the principles of lesson planning?

Ans
✗ 1. Selecting teaching aids
✗ 2. Deciding assessment methods
✗ 3. Preparing student activities
✓ 4. Setting clear objectives

Question ID : **4410091681879**
Option 1 ID : **4410096634887**
Option 2 ID : **4410096634888**
Option 3 ID : **4410096634889**
Option 4 ID : **4410096634886**

Q.2 What is a primary significance of Environmental Studies in the context of pedagogy?

Ans
✗ 1. It centers solely on historical facts about nature.
✓ 2. It builds environmental awareness and responsibility.
✗ 3. It promotes economic growth through industrialization.
✗ 4. It only provides technical skills for laboratory analysis.

Question ID : **4410091611678**
Option 1 ID : **4410096365570**
Option 2 ID : **4410096365568**
Option 3 ID : **4410096365569**
Option 4 ID : **4410096365567**

Q.3 What is the main focus of the Grammar Translation Method in teaching English?

Ans
✗ 1. Encouraging students to speak English fluently in everyday situations
✓ 2. Translating sentences and learning grammar rules using native language
✗ 3. Using games and interactive activities to teach vocabulary and grammar
✗ 4. Integrating multimedia tools for listening and reading practice effectively

Question ID : **4410091547983**
Option 1 ID : **4410096114643**
Option 2 ID : **4410096114644**
Option 3 ID : **4410096114645**
Option 4 ID : **4410096114646**

QuickSarkari.com | WhatsApp Channel | Telegram: t.me/quick_sarkari

Q.4 English is placed in the school curriculum mainly because it:

Ans
✗ 1. Replaces all other languages in schooling
✗ 2. Is culturally neutral and context-free
✓ 3. Serves as a link language
✗ 4. Functions only as an examination subject

Question ID : **4410091583230**
Option 1 ID : **4410096254267**
Option 2 ID : **4410096254265**
Option 3 ID : **4410096254266**
Option 4 ID : **4410096254264**

Q.5 A teacher instructs students to submit the edited and final version of a report and awards 90% of the grade based strictly on grammatical errors and spelling accuracy. This assessment philosophy primarily aligns with viewing writing as a:

Ans
✗ 1. Critical cognitive process.
✗ 2. Holistic communication objective.
✗ 3. Discourse construction task.
✓ 4. Mechanical skill and product.

Question ID : **4410091550996**
Option 1 ID : **4410096126241**
Option 2 ID : **4410096126239**
Option 3 ID : **4410096126242**
Option 4 ID : **4410096126240**

Q.6 Which teaching approach in Environmental Studies emphasizes connecting different subjects to provide a holistic understanding?

Ans
✗ 1. Inclusive approach
✗ 2. Conceptual process approach
✗ 3. Scientific approach
✓ 4. Integrated approach

Question ID : **4410091611695**
Option 1 ID : **4410096365634**
Option 2 ID : **4410096365632**
Option 3 ID : **4410096365631**
Option 4 ID : **4410096365633**

QuickSarkari.com | WhatsApp Channel | Telegram: t.me/quick_sarkari

Q.7 A city plans to develop a new park by integrating local culture, community needs, and natural resources. Which approach to environmental studies does this best illustrate?

Ans
✗ 1. Systems approach
✗ 2. Teleological approach
✗ 3. Environmental deterministic approach
✓ 4. Holistic approach

Question ID : **4410091604700**
Option 1 ID : **4410096337967**
Option 2 ID : **4410096337966**
Option 3 ID : **4410096337965**
Option 4 ID : **4410096337964**

Q.8 In Riverdale School, the administration wishes to measure school effectiveness beyond student test scores. Which approach best reflects comprehensive measurement as described in the context?

Ans
✗ 1. Focusing solely on annual board examination results
✗ 2. Increasing the number of summative tests each year
✗ 3. Ranking students publicly based on exam marks
✓ 4. Utilizing portfolios, peer feedback, and value-added models

Question ID : **4410091616584**
Option 1 ID : **4410096385249**
Option 2 ID : **4410096385246**
Option 3 ID : **4410096385248**
Option 4 ID : **4410096385247**

Q.9 A school syllabus removes separate Science and Social Science sections and organises lessons under themes like "Water" and "Fuel" from daily life. This mainly shows a focus on:

Ans
✗ 1. Increasing classroom periods
✗ 2. Listing separate subject facts
✗ 3. Writing more exam questions
✓ 4. Holistic content integration

Question ID : **4410091558802**
Option 1 ID : **4410096157596**
Option 2 ID : **4410096157593**
Option 3 ID : **4410096157595**
Option 4 ID : **4410096157594**

QuickSarkari.com | WhatsApp Channel | Telegram: t.me/quick_sarkari

Q.10 Carroll College's approach to education emphasizes engaging many perspectives. What outcome does this support, based on the mission-centered values and strategic plan?

Ans
✗ 1. An environment closed to outside ideas
✗ 2. A focus on competition over cooperation
✓ 3. A culture of empathy and authentic dialogue
✗ 4. A separation of faith and reason

Question ID : **4410091605071**
Option 1 ID : **4410096339451**
Option 2 ID : **4410096339452**
Option 3 ID : **4410096339450**
Option 4 ID : **4410096339453**

Q.11 Which micro teaching skill is most directly associated with giving clear and precise instructions to students during a lesson?

Ans
✗ 1. Skill of reinforcement
✓ 2. Skill of explaining
✗ 3. Skill of questioning
✗ 4. Skill of stimulus variation

Question ID : **4410091646613**
Option 1 ID : **4410096502695**
Option 2 ID : **4410096502694**
Option 3 ID : **4410096502693**
Option 4 ID : **4410096502696**

Q.12 Lesson planning is primarily executed during which phase of teaching?

Ans
✗ 1. Evaluative phase
✗ 2. Interactive phase
✓ 3. Pre-active phase
✗ 4. Post-active phase

Question ID : **4410091551035**
Option 1 ID : **4410096126386**
Option 2 ID : **4410096126383**
Option 3 ID : **4410096126385**
Option 4 ID : **4410096126384**

QuickSarkari.com | WhatsApp Channel | Telegram: t.me/quick_sarkari

Q.13 Which of the following uses different leadership styles depending on the situation and the type of employee that is being supervised?

Ans
✔ 1. A leadership approach that modifies behavior according to context and follower capability
✘ 2. A leadership approach centered on meeting employees' personal needs first
✘ 3. A leadership approach focused primarily on relationship-building and morale
✘ 4. A leadership approach that prioritizes long-term organizational culture

Question ID : **4410091548093**
Option 1 ID : **4410096115077**
Option 2 ID : **4410096115079**
Option 3 ID : **4410096115080**
Option 4 ID : **4410096115078**

Q.14 Social justice is mainly concerned with _____.

Ans
✘ 1. Uniform application of punishments
✔ 2. Fair distribution of opportunities
✘ 3. Strict enforcement of criminal laws
✘ 4. Elimination of all social conflicts

Question ID : **4410091584489**
Option 1 ID : **4410096259192**
Option 2 ID : **4410096259193**
Option 3 ID : **4410096259191**
Option 4 ID : **4410096259194**

Q.15 A principal wants to foster a culture of continuous professional development among teachers. Which action most effectively reflects the role of a pedagogical leader in this context?

Ans
✔ 1. Organizing peer observation sessions with reflective discussions
✘ 2. Assigning external trainers to conduct isolated workshops
✘ 3. Focusing professional development only on administrative skills
✘ 4. Purchasing professional development materials for the staffroom

Question ID : **4410091681777**
Option 1 ID : **4410096634483**
Option 2 ID : **4410096634484**
Option 3 ID : **4410096634485**
Option 4 ID : **4410096634482**

QuickSarkari

Q.16 An educator is designing a lesson plan that incorporates Bloom's Taxonomy to foster higher-order thinking and aligns with the principle of flexibility. Which step is crucial to ensure adaptability in instructional delivery?

Ans
✗ 1. Setting fixed objectives for all learners
✗ 2. Relying solely on one assessment method
✗ 3. Following a rigid instructional sequence
✓ 4. Providing alternate strategies for diverse needs

Question ID : **4410091611768**
Option 1 ID : **4410096365911**
Option 2 ID : **4410096365912**
Option 3 ID : **4410096365914**
Option 4 ID : **4410096365913**

Q.17 Which of the following best explains a key principle behind integrating English language instruction in a postgraduate curriculum?

Ans
✗ 1. It focuses mainly on grammar development for advanced students.
✗ 2. It prioritizes literature appreciation over functional language use.
✓ 3. It supports academic discourse and critical thinking across disciplines.
✗ 4. It emphasizes rote memorization of vocabulary lists.

Question ID : **4410091611693**
Option 1 ID : **4410096365628**
Option 2 ID : **4410096365629**
Option 3 ID : **4410096365627**
Option 4 ID : **4410096365630**

Q.18 Which type of language assessment is most appropriate for evaluating a learner's ability to organize ideas coherently and express them in written form?

Ans
✗ 1. Oral assessment
✓ 2. Writing assessment
✗ 3. Listening assessment
✗ 4. Reading assessment

Question ID : **4410091636115**
Option 1 ID : **4410096462422**
Option 2 ID : **4410096462421**
Option 3 ID : **4410096462424**
Option 4 ID : **4410096462423**

QuickSarkari.com | WhatsApp Channel | Telegram: t.me/quick_sarkari

Q.19 How are social sciences and social studies related?

Ans
✗ 1. Social sciences are only taught at the elementary school level

✗ 2. Social studies and social sciences are unrelated disciplines

✓ 3. Social studies originated from social sciences for school curriculum

✗ 4. Social sciences are a subset of social studies at universities

Question ID : **4410091634004**
Option 1 ID : **4410096454113**
Option 2 ID : **4410096454112**
Option 3 ID : **4410096454110**
Option 4 ID : **4410096454111**

Q.20 A school ensures that every child gets equal learning opportunities regardless of background. This practice promotes:

Ans
✗ 1. Preference for high achievers

✗ 2. Grouping by social background

✗ 3. Classroom competition

✓ 4. Values of equality and justice

Question ID : **4410091570139**
Option 1 ID : **4410096201559**
Option 2 ID : **4410096201560**
Option 3 ID : **4410096201557**
Option 4 ID : **4410096201558**

Section : **Discipline5**

Q.1 How does the nature of mathematics as a discipline influence its perceived importance in education?

Ans
✗ 1. Mathematics minimizes cooperative learning in favor of individual drill practice

✗ 2. Mathematics is mainly concerned with chronological facts and descriptive narratives

✗ 3. Mathematics primarily stresses rote procedural recall rather than creative thinking

✓ 4. Mathematics cultivates analytical reasoning and systematic problem solving

Question ID : **4410091641195**
Option 1 ID : **4410096481935**
Option 2 ID : **4410096481936**
Option 3 ID : **4410096481934**
Option 4 ID : **4410096481933**

QuickSarkari.com | WhatsApp Channel | Telegram: t.me/quick_sarkari

Q.2 Which of the following best explains the nature of mathematics?

Ans
✗ 1. It deals only with theoretical proofs with no practical implication

✗ 2. It is limited only to numerical calculations and assumptions

✓ 3. It develops from concrete experiences to abstract concepts

✗ 4. It is unrelated to daily life activities and is used in classroom only

Question ID : **4410091581889**
Option 1 ID : **4410096248795**
Option 2 ID : **4410096248793**
Option 3 ID : **4410096248796**
Option 4 ID : **4410096248794**

Q.3 Which of the following is an example of recreational mathematics?

Ans
✗ 1. Memorizing multiplication tables

✓ 2. Solving puzzles like Sudoku

✗ 3. Practicing handwriting

✗ 4. Reading a history book

Question ID : **4410091624165**
Option 1 ID : **4410096415231**
Option 2 ID : **4410096415232**
Option 3 ID : **4410096415234**
Option 4 ID : **4410096415233**

Q.4 Which statement reflects a key concept of the nature of science as taught in science education?

Ans
✓ 1. Scientific knowledge is subject to change with new evidence

✗ 2. Science never changes once established

✗ 3. Science education avoids discussing new discoveries

✗ 4. Science is based on unchangeable facts

Question ID : **4410091618547**
Option 1 ID : **4410096393060**
Option 2 ID : **4410096393059**
Option 3 ID : **4410096393062**
Option 4 ID : **4410096393061**

QuickSarkari.com | WhatsApp Channel | Telegram: t.me/quick_sarkari

Q.5 A private school reserves 25% of its seats for children from economically weaker sections and children with special needs, as per government mandate. This is an example of which inclusion strategy in Indian education?

Ans
✗ 1. Provision of scholarships based on academic performance
✓ 2. Enforcement of RTE-mandated private school reservations
✗ 3. Adoption of multilingual classroom instruction
✗ 4. Implementation of flexible curricula for diverse learners

Question ID : **4410091619207**
Option 1 ID : **4410096395699**
Option 2 ID : **4410096395698**
Option 3 ID : **4410096395697**
Option 4 ID : **4410096395696**

Q.6 For a research project, graduate students design a rubric to assess peers' intercultural communication. This task best exemplifies which aspect of Bloom's domains?

Ans
✗ 1. Receiving in the affective domain
✗ 2. Applying knowledge in the cognitive domain
✓ 3. Applying evaluation in the cognitive domain
✗ 4. Creating in the psychomotor domain

Question ID : **4410091626496**
Option 1 ID : **4410096424358**
Option 2 ID : **4410096424359**
Option 3 ID : **4410096424357**
Option 4 ID : **4410096424356**

Q.7 Which approach best supports working towards gender equality in schools?

Ans
✗ 1. Assigning tasks based on gender roles
✗ 2. Ignoring gender differences in classroom
✓ 3. Implementing gender-sensitive policies and practices
✗ 4. Promoting single-gender classrooms exclusively

Question ID : **4410091639004**
Option 1 ID : **4410096473583**
Option 2 ID : **4410096473582**
Option 3 ID : **4410096473581**
Option 4 ID : **4410096473584**

QuickSarkari.com | WhatsApp Channel | Telegram: t.me/quick_sarkari

Q.8 A teacher uses group activities where children from diverse backgrounds work together. This helps in:

Ans
✗ 1. Creating barriers
✗ 2. Avoiding diversity
✓ 3. Addressing inequality in classrooms
✗ 4. Increasing competition

Question ID : **4410091570309**
Option 1 ID : **4410096202221**
Option 2 ID : **4410096202222**
Option 3 ID : **4410096202224**
Option 4 ID : **4410096202223**

Q.9 What is one main goal of working towards gender equality in schools?

Ans
✗ 1. Allowing only one gender to participate
✓ 2. Providing equal opportunities to all genders
✗ 3. Focusing only on academic subjects
✗ 4. Encouraging competition among students

Question ID : **4410091624302**
Option 1 ID : **4410096415737**
Option 2 ID : **4410096415735**
Option 3 ID : **4410096415738**
Option 4 ID : **4410096415736**

Q.10 What is a key strategy for addressing inequality and diversity in Indian classrooms?

Ans
✗ 1. Ignoring cultural backgrounds in lessons
✓ 2. Implementing differentiated instruction
✗ 3. Using a single teaching method for all students
✗ 4. Assigning students to separate classrooms for diversity

Question ID : **4410091618660**
Option 1 ID : **4410096393511**
Option 2 ID : **4410096393512**
Option 3 ID : **4410096393513**
Option 4 ID : **4410096393514**

QuickSarkari.com | WhatsApp Channel | Telegram: t.me/quick_sarkari

Q.11 A school introduces early screening and remedial classes for children with reading and writing difficulties. Which educational policy framework directly encourages this approach?

Ans
✗ 1. RPWD Act 2016
✗ 2. IEP
✗ 3. NIMHANS/DALI
✓ 4. NCF 2005/RTE

Question ID : **4410091619218**
Option 1 ID : **4410096395740**
Option 2 ID : **4410096395743**
Option 3 ID : **4410096395742**
Option 4 ID : **4410096395741**

Q.12 In Bloom's taxonomy, which domain focuses primarily on the development of physical skills and coordination?

Ans
✗ 1. Affective
✓ 2. Psychomotor
✗ 3. Cognitive
✗ 4. Theoretical

Question ID : **4410091687771**
Option 1 ID : **4410096657871**
Option 2 ID : **4410096657872**
Option 3 ID : **4410096657870**
Option 4 ID : **4410096657873**

Q.13 When assessing language skills, why is a combination of observation, oral tests, and written assignments recommended?

Ans
✗ 1. It limits assessment to factual recall
✓ 2. It evaluates multiple competencies
✗ 3. It ensures only advanced grammar is tested
✗ 4. It focuses exclusively on handwriting practice

Question ID : **4410091641193**
Option 1 ID : **4410096481928**
Option 2 ID : **4410096481925**
Option 3 ID : **4410096481926**
Option 4 ID : **4410096481927**

QuickSarkari.com | WhatsApp Channel | Telegram: t.me/quick_sarkari

Q.14 A doctor reviews a partial list of symptoms and selects the most likely diagnosis. Which type of reasoning is applied?

Ans
✔ 1. Abductive reasoning
✘ 2. Inductive reasoning
✘ 3. Deductive reasoning
✘ 4. Tautological reasoning

Question ID : **4410091606458**
Option 1 ID : **4410096344840**
Option 2 ID : **4410096344842**
Option 3 ID : **4410096344841**
Option 4 ID : **4410096344843**

Q.15 A teacher wants to encourage critical thinking during a science lesson. Which use of a science kit would best achieve this goal?

Ans
✘ 1. Asking students to copy answers from the kit manual
✔ 2. Guiding students to design their own experiments using the kit
✘ 3. Limiting students to pre-written instructions only
✘ 4. Demonstrating experiments without student participation

Question ID : **4410091640299**
Option 1 ID : **4410096478395**
Option 2 ID : **4410096478394**
Option 3 ID : **4410096478396**
Option 4 ID : **4410096478397**

Q.16 Which tool is commonly used in recreational mathematics to create patterns?

Ans
✘ 1. Calculator
✘ 2. Protractor
✔ 3. Tangram
✘ 4. Abacus

Question ID : **4410091637833**
Option 1 ID : **4410096468897**
Option 2 ID : **4410096468896**
Option 3 ID : **4410096468894**
Option 4 ID : **4410096468895**

QuickSarkari.com | WhatsApp Channel | Telegram: t.me/quick_sarkari

Q.17 Effective listening in educational settings most directly contributes to which outcome?

Ans
✗ 1. Faster delivery of instructional content by teachers
✓ 2. Accurate interpretation of verbal and non-verbal messages
✗ 3. Reduced dependence on written communication materials
✗ 4. Increased authority of the speaker over the listener

Question ID : **4410091603115**
Option 1 ID : **4410096331656**
Option 2 ID : **4410096331657**
Option 3 ID : **4410096331658**
Option 4 ID : **4410096331659**

Q.18 Students create posters on saving water and conduct tree-planting drives. This activity belongs to:

Ans
✗ 1. Debate elimination rounds
✗ 2. Sports competitions
✓ 3. Science and eco-club activities
✗ 4. Assembly routine

Question ID : **4410091570285**
Option 1 ID : **4410096202132**
Option 2 ID : **4410096202129**
Option 3 ID : **4410096202130**
Option 4 ID : **4410096202131**

Q.19 What is the first step in the assessment process for identifying a child with special needs in an inclusive classroom?

Ans
✗ 1. Assigning special curriculum immediately
✓ 2. Observing the child's learning and behavior
✗ 3. Informing the parents about placement
✗ 4. Conducting a formal medical diagnosis

Question ID : **4410091688030**
Option 1 ID : **4410096658907**
Option 2 ID : **4410096658906**
Option 3 ID : **4410096658909**
Option 4 ID : **4410096658908**

QuickSarkari.com | WhatsApp Channel | Telegram: t.me/quick_sarkari

Q.20 A teacher consciously eliminates gendered derogatory remarks and avoids sex-role behavior cues in classroom interaction. Which primary mechanism of gender construction is being challenged?

Ans
- ✗ 1. Productive labor division
- ✗ 2. Sex-role rigidity
- ✓ 3. Gender socialization
- ✗ 4. Biological determination

Question ID : **4410091551669**
Option 1 ID : **4410096129314**
Option 2 ID : **4410096129311**
Option 3 ID : **4410096129313**
Option 4 ID : **4410096129312**

"

Quick Sarkari

Quick Sarkari

Thank you for studying with QuickSarkari!

Get the latest Sarkari Naukri notifications, admit cards, results, answer keys and free previous-year papers first - follow us on WhatsApp and Telegram.

Visit www.quicksarkari.com

Join our WhatsApp Channel

https://whatsapp.com/channel/0029VaxxbrREquiPoXTWM229

Join our Telegram Channel

https://t.me/quick_sarkari

Share this PDF with your friends preparing for DSSSB exams.