Quick Sarkari

DSSSB PREVIOUS YEAR PAPER WITH ANSWER KEY

DSSSB Assistant Teacher (Primary) – PRT

19 February 2026 · Shift 2

डीएसएसएसबी सहायक अध्यापक (प्राथमिक) – PRT – 19 फरवरी 2026, शिफ्ट 2 का प्रश्न पत्र, उत्तर कुंजी सहित

200	120 min	1 / −0.25	EN + HI
Questions / प्रश्न	Duration / समय	Marks per Q / अंक	Language / भाषा

Sections: General Intelligence and Reasoning Ability, General Awareness, Arithmetical and Numerical Ability, English Language and Comprehension, Hindi Language and Comprehension, Assistant Teacher (Primary) – PRT

INSIDE THIS PDF / इस PDF में

Question Paper in English + Hindi with Answer Key (correct option marked in green) + answer table — Page 2–49
प्रश्न पत्र अंग्रेज़ी + हिंदी में, उत्तर कुंजी सहित (सही विकल्प हरे रंग में) + उत्तर तालिका

Official DSSSB Response Sheet with Answer Key (correct option ticked in green) — Page 50–120
आधिकारिक DSSSB रिस्पॉन्स शीट, उत्तर कुंजी सहित (सही विकल्प हरे टिक से)

HOW TO USE THIS PAPER / इस पेपर का उपयोग कैसे करें

1. Attempt the paper first as a timed online mock test (link below).
   पहले नीचे दिए लिंक से इसे टाइमर के साथ ऑनलाइन मॉक टेस्ट के रूप में हल करें।
2. Check your score, section-wise analysis and solutions online.
   ऑनलाइन अपना स्कोर, खंड-वार विश्लेषण और हल देखें।
3. Use this PDF for revision. Correct answers are shown in green.
   दोहराने के लिए इस PDF का उपयोग करें। सही उत्तर हरे रंग में दिए गए हैं।

Attempt this paper as a FREE online mock test

इस पेपर को फ्री ऑनलाइन मॉक टेस्ट के रूप में हल करें – टाइमर, स्कोर और हल के साथ

https://quicksarkari.com/dsssb-assistant-teacher-primary-19-february-2026-shift-2-mock-test/

All DSSSB Assistant Teacher (Primary) – PRT papers and mock tests: **quicksarkari.com/dsssb-mock-test/#assistant-teacher-primary**

Join WhatsApp Channel | Join Telegram Channel

DSSSB Assistant Teacher (Primary) – PRT – Question Paper (English + Hindi)

DSSSB सहायक अध्यापक (प्राथमिक) – PRT – प्रश्न पत्र (अंग्रेज़ी + हिंदी)

Exam held on 19 February 2026, Shift 2 · 200 questions · correct answers marked ✔ in green
परीक्षा तिथि 19 फरवरी 2026, शिफ्ट 2 · 200 प्रश्न · सही उत्तर हरे रंग में ✔ से चिह्नित

> The official paper for this shift was in English. The Hindi version of each question is a translation prepared by QuickSarkari; the language-section questions are shown as asked.
> इस शिफ्ट का आधिकारिक प्रश्न पत्र अंग्रेज़ी में था। प्रत्येक प्रश्न का हिंदी संस्करण QuickSarkari द्वारा तैयार किया गया अनुवाद है; भाषा खंड के प्रश्न मूल रूप में दिए गए हैं।

General Intelligence and Reasoning Ability

Q.1 In a certain code language, 'FISH' is coded as '5892' and 'SHIP' is coded as '7589'. What is the code for 'P' in that language?
एक निश्चित कूट भाषा में, 'FISH' को '5892' और 'SHIP' को '7589' के रूप में कूटबद्ध किया जाता है।
उस भाषा में 'P' का कूट क्या है?

(1) 8
(2) 2
(3) 9
(4) 7 ✔

Q.2 Refer to the following letter, symbol series and answer the question. Counting to be done from left to right only.
(Left) & € # Y J £ M & N K V £ N % % & # Z P * J I (Right)
How many such symbols are there each of which is immediately preceded by a letter and also immediately followed by a symbol?
निम्नलिखित अक्षर, प्रतीक श्रृंखला को देखें और प्रश्न का उत्तर दें। गिनती केवल बाएँ से दाएँ की जानी है।
(बाएँ) & € # Y J £ M & N K V £ N % % & # Z P * J I (दाएँ)
ऐसे कितने प्रतीक हैं, जिनमें से प्रत्येक के ठीक पहले एक अक्षर है और ठीक बाद भी एक प्रतीक है?

(1) 2
(2) 0
(3) 1 ✔
(4) 3

Q.3 Seven people, B, U, C, K, E, T and S, are sitting around a circular table facing the centre of the table. Only one person sits between U and B when counted from the left of B. T sits third to the right of K. S sits third to the left of E. T sits to the immediate right of S. C is not an immediate neighbor of S. How many people sit between C and B when counted from the right of C?
सात व्यक्ति, B, U, C, K, E, T और S, एक वृत्ताकार मेज़ के चारों ओर मेज़ के केंद्र की ओर मुख करके बैठे हैं। B के बाएँ से गिनने पर U और B के बीच केवल एक व्यक्ति बैठा है। T, K के दाएँ से तीसरे स्थान पर बैठा है। S, E के बाएँ से तीसरे स्थान पर बैठा है। T, S के ठीक दाएँ बैठा है। C, S का निकटतम पड़ोसी नहीं है। C के दाएँ से गिनने पर C और B के बीच कितने व्यक्ति बैठे हैं?

(1) Two / दो
(2) Four / चार
(3) One / एक
(4) Three / तीन ✔

Q.4 What should come in place of '?' in the given series?
120 136 104 152 88 ?
दी गई श्रृंखला में '?' के स्थान पर क्या आना चाहिए?
120 136 104 152 88 ?

(1) 152
(2) 160
(3) 168 ✔
(4) 164

Q.5 Refer to the following letter series and answer the question that follows. Counting to be done from left to right only.
(Left) K L S U G Q X M X O G W S H Y L X T H A A (Right)
How many such consonants are there, each of which is immediately preceded by a vowel and also immediately followed by a vowel?
निम्नलिखित अक्षर श्रृंखला को देखें और उसके बाद दिए गए प्रश्न का उत्तर दें। गिनती केवल बाएँ से दाएँ की जानी है।
(बाएँ) K L S U G Q X M X O G W S H Y L X T H A A (दाएँ)
ऐसे कितने व्यंजन हैं, जिनमें से प्रत्येक के ठीक पहले एक स्वर है और ठीक बाद भी एक स्वर है?

(1) Three / तीन
(2) Two / दो
(3) One / एक
(4) None / कोई नहीं ✔

Q.6 Based on the English alphabetical order, three of the following four letter cluster pairs are alike in a certain way and thus form a group. Which is the one that does not belong to that group?
(Note: The odd one out is not based on the number of consonants/vowels or their position in the letter cluster)
अंग्रेज़ी वर्णमाला क्रम के आधार पर, निम्नलिखित चार अक्षर-समूह युग्मों में से तीन किसी निश्चित प्रकार से एकसमान हैं और इस प्रकार एक समूह बनाते हैं। वह कौन-सा युग्म है जो उस समूह से संबंधित नहीं है?
(ध्यान दें: असंगत युग्म, व्यंजनों/स्वरों की संख्या या अक्षर-समूह में उनके स्थान पर आधारित नहीं है)

(1) FH - JL
(2) QS - UW
(3) HJ - LN
(4) XB - YE ✔

Q.7 What should come in place of ? in the given series based on the English alphabetical order?
XDYP EKFW LRMD SYTK ?
अंग्रेज़ी वर्णमाला क्रम के आधार पर दी गई श्रृंखला में ? के स्थान पर क्या आना चाहिए?
XDYP EKFW LRMD SYTK ?

(1) AFRE
(2) ZARF
(3) ZFAR ✔
(4) ZSWE

Q.8 What will come in the place of '?' in the following equation, if '+' and '-' are interchanged and 'x' and '÷' are interchanged?
625 - 452 ÷ 378 x 126 + 295 ÷ 948 x 237 =?
यदि '+' और '-' को आपस में बदल दिया जाए तथा 'x' और '÷' को आपस में बदल दिया जाए, तो निम्नलिखित समीकरण में '?' के स्थान पर क्या आएगा?
625 - 452 ÷ 378 x 126 + 295 ÷ 948 x 237 =?

(1) 108
(2) **801 ✔**
(3) 180
(4) 810

Q.9 Select the pair that follows the same pattern as that followed by the two pairs given below. Both pairs follow the same pattern.
WVZ–YXB RQU–TSW
उस युग्म का चयन करें जो उसी पैटर्न का अनुसरण करता है जिसका अनुसरण नीचे दिए गए दो युग्म करते हैं। दोनों युग्म एक ही पैटर्न का अनुसरण करते हैं।
WVZ–YXB RQU–TSW

(1) LJM–NMQ
(2) LKO–MMP
(3) LJM–MLP
(4) **LKO–NMQ ✔**

Q.10 Sudhir ranked 14th from the bottom and 19th from the top in his class. How many students are there in his class?
सुधीर अपनी कक्षा में नीचे से 14वें और ऊपर से 19वें स्थान पर है। उसकी कक्षा में कितने विद्यार्थी हैं?

(1) **32 ✔**
(2) 31
(3) 33
(4) 30

Q.11 Each of E, F, G, H, Q, R and S has an exam on a different day of a week starting from Monday and ending on Sunday of the same week. E has exam on Thursday and Q has exam on Saturday. R has exam immediately before H. S has exam on one of the days after G. F has exam immediately after H. How many people have exam between S and F?
E, F, G, H, Q, R और S में से प्रत्येक की परीक्षा एक ही सप्ताह के सोमवार से प्रारंभ होकर रविवार को समाप्त होने वाले सप्ताह के अलग-अलग दिन है। E की परीक्षा गुरुवार को है और Q की परीक्षा शनिवार को है। R की परीक्षा H से ठीक पहले है। S की परीक्षा G के बाद के दिनों में से किसी एक दिन है। F की परीक्षा H के ठीक बाद है। S और F के बीच कितने व्यक्तियों की परीक्षा है?

(1) Two / दो
(2) Four / चार
(3) One / एक
(4) **Three / तीन ✔**

Quick Sarkari

Q.12 Each vowel in the word JUMBLED is changed to the letter immediately following it in the English alphabetical order and each consonant is changed to the letter immediately preceding it in the English alphabetical order. How many vowels are there in the group of letters thus formed?

शब्द JUMBLED में प्रत्येक स्वर को अंग्रेज़ी वर्णमाला क्रम में उसके ठीक बाद वाले अक्षर में बदल दिया जाता है और प्रत्येक व्यंजन को अंग्रेज़ी वर्णमाला क्रम में उसके ठीक पहले वाले अक्षर में बदल दिया जाता है। इस प्रकार बने अक्षर-समूह में कितने स्वर हैं?

(1) 0
(2) 1
(3) **2 ✔**
(4) 3

Q.13 Each of P, Q, R, S, T, U and V has an exam on a different day of a week starting from Monday and ending on Sunday of the same week.
Q has an exam on Tuesday. Only one person has exam between U and V. U has exam on the day immediately before T but not on a Wednesday. Only two people have exams between V and T. V's exam is on one of the days after R but on one of the days before S. Q has exam on the day immediately after P.
How many people have exams before V?

P, Q, R, S, T, U और V में से प्रत्येक की परीक्षा एक ही सप्ताह के सोमवार से प्रारंभ होकर रविवार को समाप्त होने वाले सप्ताह के अलग-अलग दिन है।
Q की परीक्षा मंगलवार को है। U और V के बीच केवल एक व्यक्ति की परीक्षा है। U की परीक्षा T से ठीक पहले वाले दिन है, परंतु बुधवार को नहीं। V और T के बीच केवल दो व्यक्तियों की परीक्षाएँ हैं। V की परीक्षा R के बाद के दिनों में से किसी एक दिन है, परंतु S से पहले के दिनों में से किसी एक दिन है। Q की परीक्षा P के ठीक बाद वाले दिन है।
V से पहले कितने व्यक्तियों की परीक्षाएँ हैं?

(1) **Three / तीन ✔**
(2) One / एक
(3) None / कोई नहीं
(4) Two / दो

Quick Sarkari

Q.14 Select the correct mirror image of the given figure when the mirror is placed at MN as shown below.



जब दर्पण को नीचे दर्शाए अनुसार MN पर रखा जाता है, तो दी गई आकृति के सही दर्पण प्रतिबिंब का चयन करें।

(1) 
✔

(2) 

(3) 

(4) 

Q.15 Below are given two sets of numbers. In each set of numbers, a certain mathematical operation on the first number results in the second number.
Similarly, certain mathematical operation on the second number results in the third number and so on.
Which of the given options follows the same set of operations as in the question?
(NOTE – A two/three-digit number cannot be broken into individual digits for operations e.g. if 37 is followed by 10, the operation cannot be 3+7 as a two-digit number cannot be broken into individual digits)
48 - 53 - 54 - 216 6 - 11 - 12 - 48

नीचे संख्याओं के दो समुच्चय दिए गए हैं। संख्याओं के प्रत्येक समुच्चय में, पहली संख्या पर एक निश्चित गणितीय संक्रिया करने पर दूसरी संख्या प्राप्त होती है।
इसी प्रकार, दूसरी संख्या पर एक निश्चित गणितीय संक्रिया करने पर तीसरी संख्या प्राप्त होती है और इसी तरह आगे भी। दिए गए विकल्पों में से कौन-सा विकल्प संक्रियाओं के उसी समुच्चय का अनुसरण करता है जैसा कि प्रश्न में है?
(नोट – संक्रियाएँ करने के लिए दो/तीन अंकों की संख्या को अलग-अलग अंकों में नहीं तोड़ा जा सकता, उदाहरण के लिए यदि 37 के बाद 10 आता है, तो संक्रिया 3+7 नहीं हो सकती क्योंकि दो अंकों की संख्या को अलग-अलग अंकों में नहीं तोड़ा जा सकता)
48 - 53 - 54 - 216 6 - 11 - 12 - 48

(1) 12 - 17 - 18 - 72 ✔
(2) 15 - 21 - 17 - 68
(3) 35 - 40 - 38 - 152
(4) 49 - 53 - 51 - 255

QuickSarkari.com | WhatsApp Channel | Telegram: t.me/quick_sarkari

Q.16 G is the mother of L. L is the sister of U. T is the father of N. N is the son of U. How is N related to G?
G, L की माता है। L, U की बहन है। T, N का पिता है। N, U का पुत्र है। N का G से क्या संबंध है?

(1) Father / पिता
(2) Daughter's husband / पुत्री का पति
(3) Son / पुत्र
(4) **Daughter's son / पुत्री का पुत्र ✔**

Q.17 Based on the English alphabetical order, three of the following four are alike in a certain way and thus form a group. Which is the one that does not belong to that group?
(Note: The odd man out is not based on the number of consonants/vowels or their position in the letter cluster)
अंग्रेज़ी वर्णमाला क्रम के आधार पर, निम्नलिखित चार में से तीन किसी निश्चित प्रकार से एकसमान हैं और इस प्रकार एक समूह बनाते हैं। वह कौन-सा है जो उस समूह से संबंधित नहीं है?
(ध्यान दें: असंगत, व्यंजनों/स्वरों की संख्या या अक्षर-समूह में उनके स्थान पर आधारित नहीं है)

(1) RQT
(2) **OMH ✔**
(3) LKN
(4) WVY

Q.18 What will come in the place of '?' in the following equation if '+' and '-' are interchanged and 'x' and '÷' are interchanged?
9 ÷ 3 - 20 x 5 + 7 = ?
यदि '+' और '-' को आपस में बदल दिया जाए तथा 'x' और '÷' को आपस में बदल दिया जाए, तो निम्नलिखित समीकरण में '?' के स्थान पर क्या आएगा?
9 ÷ 3 - 20 x 5 + 7 = ?

(1) 20
(2) 28
(3) **24 ✔**
(4) 25

Q.19 The position(s) of how many letters will remain unchanged if each letter in the word VICTORY is arranged in the English alphabetical order?
यदि शब्द VICTORY के प्रत्येक अक्षर को अंग्रेज़ी वर्णमाला क्रम में व्यवस्थित किया जाए, तो कितने अक्षरों का/के स्थान अपरिवर्तित रहेगा/रहेंगे?

(1) **Two / दो ✔**
(2) Zero / शून्य
(3) One / एक
(4) Three / तीन

QuickSarkari.com | WhatsApp Channel | Telegram: t.me/quick_sarkari

Q.20 Select the correct mirror image of the given figure when the mirror is placed at MN as shown below.

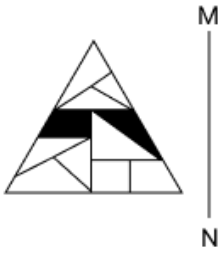

जब दर्पण को नीचे दर्शाए अनुसार MN पर रखा जाता है, तो दी गई आकृति के सही दर्पण प्रतिबिंब का चयन करें।

(1) 

(2)  ✔

(3) 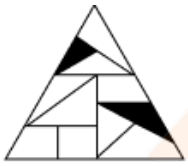

(4) 

General Awareness

Q.21 Which of the following was a major goal of India's 1991 Trade and Investment Policy Reforms?

निम्नलिखित में से कौन-सा भारत के 1991 के व्यापार और निवेश नीति सुधारों का एक प्रमुख लक्ष्य था?

(1) Promote local handicrafts / स्थानीय हस्तशिल्प को बढ़ावा देना

(2) Increase population growth / जनसंख्या वृद्धि बढ़ाना

(3) **Enhance international competitiveness and attract foreign investments / अंतरराष्ट्रीय प्रतिस्पर्धात्मकता बढ़ाना और विदेशी निवेश आकर्षित करना** ✔

(4) Eliminate all taxes / सभी करों को समाप्त करना

Q.22 Which of the following states has the largest wind farm cluster in India?

निम्नलिखित में से किस राज्य में भारत का सबसे बड़ा पवन फार्म समूह है?

(1) Gujarat / गुजरात

(2) **Tamil Nadu / तमिलनाडु** ✔

(3) Maharashtra / महाराष्ट्र

(4) Kerala / केरल

QuickSarkari.com | WhatsApp Channel | Telegram: t.me/quick_sarkari

Q.23 Which of the following belts in India is rich in copper and zinc minerals that are associated mainly with the Dharwar system of rocks?

भारत में निम्नलिखित में से कौन-सी पट्टी तांबे और जस्ते के खनिजों से समृद्ध है, जो मुख्य रूप से धारवाड़ शैल प्रणाली से संबद्ध हैं?

(1) Himalayan Belt / हिमालयी पट्टी

(2) **North-Western Region (Aravali Range) / उत्तर-पश्चिमी क्षेत्र (अरावली पर्वतमाला) ✔**

(3) South-Western Plateau Region (Sahyadri Range) / दक्षिण-पश्चिमी पठारी क्षेत्र (सह्याद्रि पर्वतमाला)

(4) North-Eastern Plateau Region / उत्तर-पूर्वी पठारी क्षेत्र

Q.24 What was the official theme chosen by South Africa for hosting the G20 Summit in 2025?

वर्ष 2025 में G20 शिखर सम्मेलन की मेज़बानी के लिए दक्षिण अफ्रीका द्वारा चुना गया आधिकारिक विषय (थीम) क्या था?

(1) **Solidarity, Equality, Sustainability / एकजुटता, समानता, स्थिरता ✔**

(2) One Earth, One Future / एक पृथ्वी, एक भविष्य

(3) Reform, Rebuild, Restore / सुधार, पुनर्निर्माण, पुनर्स्थापना

(4) Humanity First / मानवता सर्वप्रथम

Q.25 What is the key component inside a decibel meter that helps detect sound pressure?

डेसिबल मीटर के अंदर वह प्रमुख घटक कौन-सा है जो ध्वनि दाब का पता लगाने में सहायता करता है?

(1) Magnetic coil / चुंबकीय कुंडली

(2) **Microphone / माइक्रोफ़ोन ✔**

(3) LED sensor / LED संवेदक

(4) Optical fiber / प्रकाशीय तंतु

Q.26 In 2025, Gokul Chandra Das was awarded the Padma Shri in the field of Art. Which of the following statements is correct?

वर्ष 2025 में, गोकुल चंद्र दास को कला के क्षेत्र में पद्म श्री से सम्मानित किया गया। निम्नलिखित में से कौन-सा कथन सही है?

(1) He is a renowned sitar player from Maharashtra. / वे महाराष्ट्र के एक प्रसिद्ध सितार वादक हैं।

(2) **He is a celebrated dhak player from West Bengal. / वे पश्चिम बंगाल के एक प्रसिद्ध ढाक वादक हैं। ✔**

(3) He is a contemporary painter from Delhi. / वे दिल्ली के एक समकालीन चित्रकार हैं।

(4) He is a classical vocalist from Tamil Nadu. / वे तमिलनाडु के एक शास्त्रीय गायक हैं।

Q.27 Which of the following statements is CORRECT regarding the term of office of a Governor in India?

भारत में राज्यपाल के पदावधि के संबंध में निम्नलिखित में से कौन-सा कथन सही है?

(1) **The Governor holds office during the pleasure of the President and may resign by writing to the President. / राज्यपाल राष्ट्रपति के प्रसादपर्यंत पद धारण करता है और राष्ट्रपति को लिखित रूप में त्यागपत्र दे सकता है। ✔**

(2) The Legislative Assembly of the State elects the Governor. / राज्य की विधान सभा राज्यपाल का निर्वाचन करती है।

(3) The Governor cannot resign once appointed until the five-year term is complete. / राज्यपाल एक बार नियुक्त होने के बाद पाँच वर्ष का कार्यकाल पूरा होने तक त्यागपत्र नहीं दे सकता।

(4) The governor can be removed only through impeachment in Parliament on the recommendation of the Chief Justice of India. / राज्यपाल को भारत के मुख्य न्यायाधीश की सिफ़ारिश पर संसद में केवल महाभियोग के माध्यम से ही हटाया जा सकता है।

Q.28 Which tribal community dominated the Bastar region during the British indirect rule?

ब्रिटिश अप्रत्यक्ष शासन के दौरान बस्तर क्षेत्र में किस जनजातीय समुदाय का प्रभुत्व था?

(1) Juang / जुआंग

(2) Santhal / संथाल

(3) **Gond / गोंड ✔**

(4) Bhil / भील

Q.29 The Bharatmala Project is related to the development of which type of infrastructure?

भारतमाला परियोजना किस प्रकार की अवसंरचना के विकास से संबंधित है?

(1) Airports / हवाई अड्डे

(2) Smart Cities / स्मार्ट सिटी

(3) Railways / रेलवे

(4) **Highways / राजमार्ग ✔**

Q.30 In February 2025, which country withdrew from China's Belt and Road Initiative (BRI) by deciding not to renew the 2017 Memorandum of Understanding with China?

फरवरी 2025 में, किस देश ने चीन के साथ 2017 के समझौता ज्ञापन का नवीनीकरण न करने का निर्णय लेकर चीन की बेल्ट एंड रोड इनिशिएटिव (BRI) से अपना नाम वापस ले लिया?

(1) Philippines / फिलीपींस

(2) Indonesia / इंडोनेशिया

(3) **Panama / पनामा ✔**

(4) Vietnam / वियतनाम

Q.31 During the 1857 Battle of Chinhat, the British contingent suffered a loss under the command of which of the following officials?

1857 के चिनहट के युद्ध के दौरान, निम्नलिखित में से किस अधिकारी के नेतृत्व में ब्रिटिश दल को पराजय का सामना करना पड़ा?

(1) **Henry Lawrence / हेनरी लॉरेंस ✔**

(2) John Nicholson / जॉन निकोलसन

(3) William Hodson / विलियम हडसन

(4) James Outram / जेम्स आउट्रम

Q.32 Which classical dancer is credited with reviving Bharatanatyam and founding the Kalakshetra Foundation?

भरतनाट्यम को पुनर्जीवित करने और कलाक्षेत्र फाउंडेशन की स्थापना का श्रेय किस शास्त्रीय नृत्यांगना को दिया जाता है?

(1) Shovana Narayan / शोवना नारायण

(2) Alarmel Valli / अलारमेल वल्ली

(3) **Rukmini Devi Arundale / रुक्मिणी देवी अरुंडेल ✔**

(4) Mrinalini Sarabhai / मृणालिनी साराभाई

Q.33 In scientific research, which system of units is primarily used?

वैज्ञानिक अनुसंधान में मुख्य रूप से मात्रकों की किस पद्धति का उपयोग किया जाता है?

(1) US standard system / US मानक पद्धति

(2) CGS system / CGS पद्धति

(3) Customary system / पारंपरिक (कस्टमरी) पद्धति

(4) **SI system / SI पद्धति ✔**

Q.34 Following the First Round Table Conference when Congress appointed a negotiator to hold direct talks with Lord Irwin, the British Viceroy of India, which of the following leaders was chosen for this role?
प्रथम गोलमेज सम्मेलन के बाद, जब कांग्रेस ने भारत के ब्रिटिश वायसराय लॉर्ड इरविन के साथ प्रत्यक्ष वार्ता करने के लिए एक वार्ताकार नियुक्त किया, तो इस भूमिका के लिए निम्नलिखित में से किस नेता को चुना गया?

(1) Mahatma Gandhi / महात्मा गांधी ✔
(2) Subhas Chandra Bose / सुभाष चंद्र बोस
(3) Sardar Patel / सरदार पटेल
(4) Jawaharlal Nehru / जवाहरलाल नेहरू

Q.35 Pattachitra paintings are traditionally associated with which deity and region?
पट्टचित्र चित्रकला परंपरागत रूप से किस देवता और क्षेत्र से संबद्ध है?

(1) Lord Jagannath, Odisha / भगवान जगन्नाथ, ओडिशा ✔
(2) Lord Shiva, Tamil Nadu / भगवान शिव, तमिलनाडु
(3) Lord Krishna, Uttar Pradesh / भगवान कृष्ण, उत्तर प्रदेश
(4) Goddess Durga, West Bengal / देवी दुर्गा, पश्चिम बंगाल

Q.36 Which of the following is a prominent feature of the Peninsular Plateau in India?
निम्नलिखित में से कौन-सी भारत के प्रायद्वीपीय पठार की एक प्रमुख विशेषता है?

(1) Glacial moraines / हिमनदीय हिमोढ़
(2) Rift valleys / भ्रंश घाटियाँ ✔
(3) Coral islands / प्रवाल द्वीप
(4) Fold mountains / वलित पर्वत

Q.37 Under which of the following circumstances can the Parliament legislate on a matter in the State List?
निम्नलिखित में से किस परिस्थिति में संसद राज्य सूची के किसी विषय पर कानून बना सकती है?

(1) When the Governor of a State requests intervention by the Union Government / जब किसी राज्य का राज्यपाल केंद्र सरकार से हस्तक्षेप का अनुरोध करता है
(2) When the Rajya Sabha passes a resolution by a two-thirds majority in the national interest / जब राज्य सभा राष्ट्रीय हित में दो-तिहाई बहुमत से एक संकल्प पारित करती है ✔
(3) When the Lok Sabha passes a resolution by a simple majority in the national interest / जब लोक सभा राष्ट्रीय हित में साधारण बहुमत से एक संकल्प पारित करती है
(4) When the President gives assent without recommendation / जब राष्ट्रपति बिना सिफ़ारिश के अनुमति देते हैं

Q.38 What is the primary objective of the 130th Constitutional Amendment Bill (2025)?
130वें संविधान संशोधन विधेयक (2025) का प्राथमिक उद्देश्य क्या है?

(1) To mandate the resignation of public officeholders who are jailed / जेल में बंद सार्वजनिक पदधारकों के त्यागपत्र को अनिवार्य करना ✔
(2) To change the President's election process / राष्ट्रपति की निर्वाचन प्रक्रिया में परिवर्तन करना
(3) To expand the powers of local self-governments / स्थानीय स्वशासन की शक्तियों का विस्तार करना
(4) To alter the federal distribution of powers / शक्तियों के संघीय वितरण में परिवर्तन करना

Q.39 Which award did Jay Shah, the newly appointed ICC Chairman, receive at the Sportstar Aces Awards 2025?

ICC के नवनियुक्त अध्यक्ष जय शाह को स्पोर्टस्टार एसेस अवार्ड्स 2025 में कौन-सा पुरस्कार प्राप्त हुआ?

(1) Special Recognition Game Changer Award / स्पेशल रिकग्निशन गेम चेंजर अवार्ड ✔

(2) Sportsman of the Year / स्पोर्ट्समैन ऑफ़ द ईयर

(3) Lifetime Achievement Award / लाइफ़टाइम अचीवमेंट अवार्ड

(4) Sportstar of the Year / स्पोर्टस्टार ऑफ़ द ईयर

Q.40 Which of the following Panchayat levels is responsible for district-level planning in India?

भारत में निम्नलिखित में से कौन-सा पंचायत स्तर जिला-स्तरीय योजना के लिए उत्तरदायी है?

(1) Block Panchayat / ब्लॉक पंचायत

(2) Lok Sabha / लोक सभा

(3) Gram Panchayat / ग्राम पंचायत

(4) Zila Parishad / जिला परिषद ✔

Arithmetical and Numerical Ability

Q.41 A solid iron cone with a height of 16 cm and a radius of the base of 12 cm is melted and made into solid spheres of radius 4 cm each. Find the number of spheres formed.

16 cm ऊँचाई और 12 cm आधार त्रिज्या वाले लोहे के एक ठोस शंकु को पिघलाकर 4 cm त्रिज्या वाले ठोस गोले बनाए जाते हैं। बने गोलों की संख्या ज्ञात कीजिए।

(1) 10

(2) 11

(3) 9 ✔

(4) 8

Q.42 A, B and C run around a circular track of length 2400 m, with speed of 15 km/hr, 24 km/hr and 27 km/hr, respectively. If they start at the same point and at the same time in the same direction, after how much time will they meet again at the starting point?

A, B और C, 2400 m लंबाई वाले एक वृत्ताकार पथ पर क्रमशः 15 km/hr, 24 km/hr और 27 km/hr की चाल से दौड़ते हैं। यदि वे एक ही बिंदु से, एक ही समय पर, एक ही दिशा में दौड़ना प्रारंभ करते हैं, तो कितने समय बाद वे प्रारंभिक बिंदु पर पुनः मिलेंगे?

(1) 44 minutes / 44 मिनट

(2) 48 minutes / 48 मिनट ✔

(3) 30 minutes / 30 मिनट

(4) 37 minutes / 37 मिनट

Q.43 The average weight of a family of five members whose weights are 40 kg, 48 kg, 57 kg, 76 kg and 35 kg is:

पाँच सदस्यों वाले एक परिवार, जिनके भार 40 kg, 48 kg, 57 kg, 76 kg और 35 kg हैं, का औसत भार है:

(1) 51.2 kg ✔

(2) 52.4 kg

(3) 50.2 kg

(4) 53.4 kg

Q.44 The number of a special species of birds in a bird sanctuary on 1st January 2021 is 1600. If their population is increased for two years at the rate 5%, and decreased by 2% for the next one year, what is their total number on 1st January 2024? (corrected to the nearest natural number)

1 जनवरी 2021 को एक पक्षी अभयारण्य में पक्षियों की एक विशेष प्रजाति की संख्या 1600 है। यदि उनकी जनसंख्या दो वर्षों तक 5% की दर से बढ़ती है, और अगले एक वर्ष के लिए 2% घटती है, तो 1 जनवरी 2024 को उनकी कुल संख्या कितनी होगी? (निकटतम प्राकृत संख्या तक सही)

(1) 1729 ✔

(2) 1720

(3) 1629

(4) 1825

Q.45 ₹6,510 is divided among A, B, C and D in such a way that the shares of A and B, B and C, and C and D are in the ratios of 2 : 3, 4 : 5 and 6 : 7, respectively. The share of A (in ₹) is:

₹6,510 को A, B, C और D के बीच इस प्रकार बाँटा जाता है कि A और B, B और C, तथा C और D के हिस्से क्रमशः 2 : 3, 4 : 5 और 6 : 7 के अनुपात में हैं। A का हिस्सा (₹ में) है:

(1) 932

(2) 992 ✔

(3) 1,032

(4) 962

Q.46 Two numbers are in the ratio 3 : 5. If the sum of numbers is 96, find the numbers.

दो संख्याएँ 3 : 5 के अनुपात में हैं। यदि संख्याओं का योग 96 है, तो संख्याएँ ज्ञात कीजिए।

(1) 36, 60 ✔

(2) 35, 61

(3) 40, 56

(4) 45, 51

Q.47 What is the greatest number which, when divided by 37 and 60, leaves remainders 1 and 4, respectively?

वह सबसे बड़ी संख्या कौन-सी है, जिससे 37 और 60 को विभाजित करने पर क्रमशः 1 और 4 शेषफल प्राप्त होते हैं?

(1) 7

(2) 4 ✔

(3) 5

(4) 8

Q.48 A shopkeeper mixes two varieties of tea costing ₹240/kg and ₹280/kg in a ratio of 3:2 and sells the mixture at ₹300/kg. What is the profit percentage? (Round off your answer to two decimal places.)

एक दुकानदार ₹240/kg और ₹280/kg मूल्य वाली चाय की दो किस्मों को 3:2 के अनुपात में मिलाता है और मिश्रण को ₹300/kg पर बेचता है। लाभ प्रतिशत कितना है? (अपना उत्तर दशमलव के दो स्थानों तक पूर्णांकित करें।)

(1) 17.19% ✔

(2) 18.18%

(3) 15.16%

(4) 25.27%

Q.49 The price of onions goes up by 26%. By how much percentage must a housewife reduce her consumption of onions, so that the expenditure on onions remains the same (correct to two places of decimals)?

प्याज़ की कीमत में 26% की वृद्धि होती है। एक गृहिणी को प्याज़ की अपनी खपत में कितने प्रतिशत की कमी करनी चाहिए, ताकि प्याज़ पर व्यय समान रहे (दशमलव के दो स्थानों तक सही)?

(1) 18.72%

(2) 20.63% ✔

(3) 12.56%

(4) 15.23%

Q.50 Two painters P and Q paint the one flat in 12 days. If P alone can paint the flat in 48 days, in how many days can Q alone complete the same paint work?

दो पेंटर P और Q एक फ्लैट को 12 दिनों में पेंट करते हैं। यदि P अकेले फ्लैट को 48 दिनों में पेंट कर सकता है, तो Q अकेले उसी पेंट कार्य को कितने दिनों में पूरा कर सकता है?

(1) 12

(2) 15

(3) 18

(4) 16 ✔

Q.51 What sum of money (in ₹) will yield ₹860 as simple interest in 2 years at 10% per annum?

कितनी धनराशि (₹ में) पर 10% वार्षिक दर से 2 वर्षों में ₹860 साधारण ब्याज प्राप्त होगा?

(1) 4,500

(2) 4,300 ✔

(3) 3,800

(4) 4,700

Q.52 16 men can dig a well 69 feet deep in 13 days. How many men can dig a well 138 feet deep in 8 days?

16 आदमी 69 फीट गहरा एक कुआँ 13 दिनों में खोद सकते हैं। 138 फीट गहरा कुआँ 8 दिनों में कितने आदमी खोद सकते हैं?

(1) 52 ✔

(2) 55

(3) 53

(4) 51

Q.53 In a sale, 60% of the goods are sold at a profit of 27%. Of the remaining goods, 30% are sold at a profit of 39%, and the rest are sold at a loss of 26%. If the overall profit is x%, determine the value of x.

एक सेल में, 60% माल 27% के लाभ पर बेचा जाता है। शेष माल में से 30% माल 39% के लाभ पर बेचा जाता है, और बाकी माल 26% की हानि पर बेचा जाता है। यदि कुल लाभ x% है, तो x का मान ज्ञात कीजिए।

(1) 13.6 ✔

(2) 5.5

(3) 8

(4) 3

Q.54 If the radius of a spherical balloon is increased by 2 cm, then its surface area increases by 352 cm^2. The radius of the balloon after the increase was:

यदि एक गोलाकार गुब्बारे की त्रिज्या 2 cm बढ़ा दी जाए, तो उसका पृष्ठीय क्षेत्रफल 352 cm^2 बढ़ जाता है। वृद्धि के बाद गुब्बारे की त्रिज्या थी:

(1) 8 cm ✔

(2) 10 cm

(3) 4 cm

(4) 6 cm

Q.55 The marked price of a television is ₹60,000. During the festive season, a certain percentage of discount is declared. Mr. Gopal bought it at the reduced price. He sold it at ₹70,000 and got a profit of 40%, what is the percentage of discount declared on it?

एक टेलीविज़न का अंकित मूल्य ₹60,000 है। त्योहारी मौसम के दौरान, एक निश्चित प्रतिशत छूट की घोषणा की जाती है। श्री गोपाल ने इसे घटे हुए मूल्य पर खरीदा। उन्होंने इसे ₹70,000 में बेचा और 40% का लाभ प्राप्त किया, तो इस पर घोषित छूट का प्रतिशत कितना है?

(1) 12 2/3%

(2) 18 2/5%

(3) 16 2/3% ✔

(4) 11 2/5%

Q.56 A vessel has 20 litres of milk. From this vessel, 5 litres of milk is taken out and replaced by water. The process is repeated once more. Find the quantity of milk (in litres, rounded off to two decimal places) remaining in the vessel.

एक बर्तन में 20 लीटर दूध है। इस बर्तन से 5 लीटर दूध निकालकर उसके स्थान पर पानी मिला दिया जाता है। यह प्रक्रिया एक बार और दोहराई जाती है। बर्तन में शेष दूध की मात्रा (लीटर में, दशमलव के दो स्थानों तक पूर्णांकित) ज्ञात कीजिए।

(1) 11.25 ✔

(2) 11.75

(3) 12.25

(4) 12.75

Q.57 Find the area (in cm^2) of an equilateral triangle whose side is $4\sqrt{3}$ cm.

उस समबाहु त्रिभुज का क्षेत्रफल (cm^2 में) ज्ञात कीजिए जिसकी भुजा $4\sqrt{3}$ cm है।

(1) $18\sqrt{3}$

(2) $12\sqrt{3}$ **✔**

(3) $36\sqrt{3}$

(4) $24\sqrt{3}$

Q.58 A man travels from A to B with speed of 18 km/hr and comes back from B to A with 22 km/hr. Find his average speed (in km/hr).

एक व्यक्ति A से B तक 18 km/hr की चाल से यात्रा करता है और B से A तक 22 km/hr की चाल से वापस आता है। उसकी औसत चाल (km/hr में) ज्ञात कीजिए।

(1) 20.2

(2) 21.4

(3) 21.9

(4) 19.8 ✔

Q.59 The line graph given below shows the maximum temperature (in degree celsius) on the seven days of a particular week.
Study the graph and answer the question that follows.

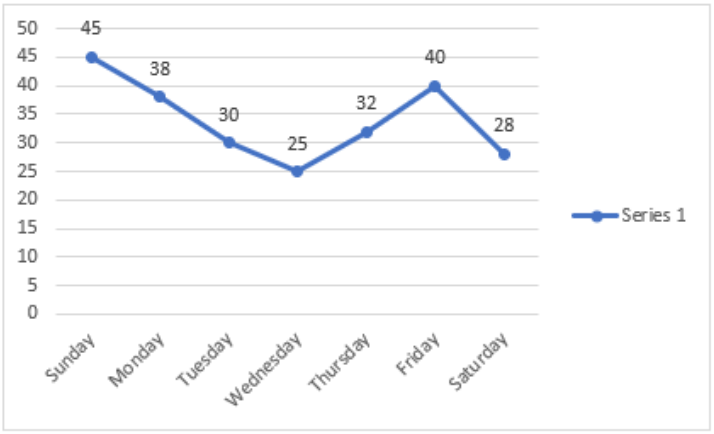

Find the average temperature (in degree celsius) of first four days of the week (i.e, Sunday to Wednesday).
नीचे दिया गया रेखा-ग्राफ़ एक विशेष सप्ताह के सात दिनों के अधिकतम तापमान (डिग्री सेल्सियस में) को दर्शाता है।
ग्राफ़ का अध्ययन करें और उसके बाद दिए गए प्रश्न का उत्तर दें।
सप्ताह के प्रथम चार दिनों (अर्थात् रविवार से बुधवार) का औसत तापमान (डिग्री सेल्सियस में) ज्ञात कीजिए।

(1) 32
(2) **34.5 ✔**
(3) 42.5
(4) 39

Q.60 The value of $4 \times \sqrt{(11/161051)} + 3.5$ is equal to:
$4 \times \sqrt{(11/161051)} + 3.5$ का मान किसके बराबर है:

(1) **855/242 ✔**
(2) 242/855
(3) 242/955
(4) 955/242

English Language and Comprehension

Q.61 In the following question a statement has been given with highlighted text. You are required to replace the text with the correct idiom from the given alternatives.
Although he seems trustworthy, in reality he is an unreliable person who often cheats his friends.

(1) A man of letters
(2) **A fair-weather friend ✔**
(3) A man of means
(4) A gentleman at large

Q.62 Choose the appropriate option to complete the sentence.
Dr. Meera emphasized ___ importance of ethics in journalism and highlighted ___ role of responsible reporting in shaping society.

(1) an / a
(2) a / a
(3) **the / the ✔**
(4) the / a

Q.63 Identify the misspelt word in the sentence and choose the option that has the correct spelling.
She spoke eloquently, yet a sudden surge of embarassment made her lose her train of thought.

(1) She spoke eloqeuently
(2) **of embarrassment made ✔**
(3) yet a sudden surege
(4) her loose her train of thought.

Q.64 Select the most appropriate antonym of the underlined word in the given sentence.
He wrote an extensive report.

(1) **brief ✔**
(2) alternative
(3) positive
(4) ambiguous

Q.65 Select the most appropriate option that can substitute the underlined words in the given sentence.
The council having the agreement and consent of all resolved to remove it.

(1) impulsively
(2) leisurely
(3) melancholy
(4) **unanimously ✔**

Q.66 In the following sentence, a segment is highlighted. You are required to replace the highlighted text with the correct proverb from the given options.
She finally achieved a spotless kitchen because she believes that hard work produces the best results.

(1) great oaks grow from small acorns
(2) **elbow grease is the best polish ✔**
(3) fair exchange is no robbery
(4) easier said than done

Q.67 Select the most appropriate option that can substitute the underlined words in the given sentence.
Unless you have a sound attitude of mind, a right psychology, you cannot construct or reconstruct anything that will remain firm.

(1) admit
(2) **endure ✔**
(3) compete
(4) persuade

Q.68 Parts of the given sentence have been underlined. One of them may contain a spelling error. Select the option with a misspelt word.
Several of her patients have made aleggations of professional misconduct against her.

(1) Professional
(2) Misconduct
(3) **Aleggations ✔**
(4) Several

Q.69 The following sentence has been divided into segments. While the first segment (S1) is in the correct order, the segments below it are jumbled up. Arrange the segments in the correct order to form a meaningful and coherent sentence.
Fixed segment:
As the sun dipped below the horizon, (S1)
Jumbled segments:
painting the sky in hues of orange and pink (P)/ a cool breeze rustled the leaves (Q)/ casting long shadows across the fields (R)/ and the world seemed to pause for a moment (S)

(1) PQRS ✔
(2) PSRQ
(3) RQSP
(4) PRSQ

Q.70 Select the most appropriate article to fill in the blank. If no article is needed, select 'No article required'.
She visited _____ Taj Mahal during her vacation in Agra.

(1) an
(2) a
(3) the ✔
(4) No article required

Q.71 Rearrange all the segments to form a coherent statement.
was shrouded in darkness (P) / the abandoned house (Q) / creaking with every gust of wind (R) / standing at the edge of the forest (S)

(1) QRSP
(2) SQPR ✔
(3) QSPR
(4) PQRS

Q.72 Complete the sentence with the appropriate word.
The proposal was accepted _____ minor revisions were made to the final draft.

(1) until
(2) unless
(3) after ✔
(4) whereas

Q.73 Choose the most appropriate option to fill in the given blanks.
The book is ___ the table and the pen is ___ the drawer.

(1) on, in ✔
(2) over, into
(3) above, onto
(4) upon, into

QuickSarkari.com | WhatsApp Channel | Telegram: t.me/quick_sarkari

Q.74 Select the option that is the most appropriate antonym of the highlighted word in the given sentence.
She decided to confess her mistake and tell the truth.

(1) acknowledge
(2) declare
(3) admit
(4) **conceal ✔**

Q.75 Choose the most appropriate option to fill in the given blanks.
Her voice was ___ and her tone was ___.

(1) **sweet, gentle ✔**
(2) sweetness, gentleness
(3) sweeter, gentle
(4) sweetly, gently

Q.76

Read the passage carefully and answer the following questions.
Fresco painting, derived from the Italian word fresco meaning "fresh," is a celebrated mural technique that involves applying water-based pigments to freshly laid lime plaster. The process begins with preparing the wall surface by spreading wet plaster, which must remain damp to absorb the pigments effectively. As the plaster dries, the pigments chemically bond with it, making the artwork a permanent part of the wall. This method, known as buon fresco, requires the artist to work swiftly and precisely, completing each section—called a "giornata" or "day's work"—before the plaster sets. This technique reached its pinnacle during the Italian Renaissance, most notably through the work of Michelangelo. Though he considered himself primarily a sculptor, Michelangelo was commissioned by Pope Julius II to paint the ceiling of the Sistine Chapel, a project he undertook from 1508 to 1512. The ceiling features over 300 figures from the Book of Genesis, including the iconic Creation of Adam, which showcases his mastery of human anatomy and expressive composition. Michelangelo returned to the Sistine Chapel decades later to paint The Last Judgment on the altar wall (1536–1541), a dramatic and emotionally charged fresco that reflects his evolving style and deepening psychological insight. Despite his personal frustrations with the medium, Michelangelo's frescoes remain monumental achievements in art history. His disciplined approach and visionary execution transformed the Sistine Chapel into a lasting testament to the power of fresco as both a technical and expressive form.

Identify the most appropriate title for the passage.

(1) The History of Italian Plaster
(2) The Art and History of Sculpture
(3) **Michelangelo and the Pinnacle of Fresco Painting ✔**
(4) Pope Julius II and his Love for Fresco

Q.77

Read the passage carefully and answer the following questions.
Fresco painting, derived from the Italian word fresco meaning "fresh," is a celebrated mural technique that involves applying water-based pigments to freshly laid lime plaster. The process begins with preparing the wall surface by spreading wet plaster, which must remain damp to absorb the pigments effectively. As the plaster dries, the pigments chemically bond with it, making the artwork a permanent part of the wall. This method, known as buon fresco, requires the artist to work swiftly and precisely, completing each section—called a "giornata" or "day's work"—before the plaster sets. This technique reached its pinnacle during the Italian Renaissance, most notably through the work of Michelangelo. Though he considered himself primarily a sculptor, Michelangelo was commissioned by Pope Julius II to paint the ceiling of the Sistine Chapel, a project he undertook from 1508 to 1512. The ceiling features over 300 figures from the Book of Genesis, including the iconic Creation of Adam, which showcases his mastery of human anatomy and expressive composition. Michelangelo returned to the Sistine Chapel decades later to paint The Last Judgment on the altar wall (1536–1541), a dramatic and emotionally charged fresco that reflects his evolving style and deepening psychological insight. Despite his personal frustrations with the medium, Michelangelo's frescoes remain monumental achievements in art history. His disciplined approach and visionary execution transformed the Sistine Chapel into a lasting testament to the power of fresco as both a technical and expressive form.

Identify the correct inference that can be drawn from the passage.

(1) The technique Buon Fresco requires artists to work very slowly and patiently

(2) Pope Julius II was the greatest Fresco painter of Italian Rennaisance

(3) Michaelangelo was moody and did not agree to the commission for Sistine Chapel

(4) Michaelangelo's artistic style and psychology evolved over time and his frescoes reflect it ✔

QuickSarkari

Q.78

Read the passage carefully and answer the following questions.
Fresco painting, derived from the Italian word fresco meaning "fresh," is a celebrated mural technique that involves applying water-based pigments to freshly laid lime plaster. The process begins with preparing the wall surface by spreading wet plaster, which must remain damp to absorb the pigments effectively. As the plaster dries, the pigments chemically bond with it, making the artwork a permanent part of the wall. This method, known as buon fresco, requires the artist to work swiftly and precisely, completing each section—called a "giornata" or "day's work"—before the plaster sets. This technique reached its pinnacle during the Italian Renaissance, most notably through the work of Michelangelo. Though he considered himself primarily a sculptor, Michelangelo was commissioned by Pope Julius II to paint the ceiling of the Sistine Chapel, a project he undertook from 1508 to 1512. The ceiling features over 300 figures from the Book of Genesis, including the iconic Creation of Adam, which showcases his mastery of human anatomy and expressive composition. Michelangelo returned to the Sistine Chapel decades later to paint The Last Judgment on the altar wall (1536–1541), a dramatic and emotionally charged fresco that reflects his evolving style and deepening psychological insight. Despite his personal frustrations with the medium, Michelangelo's frescoes remain monumental achievements in art history. His disciplined approach and visionary execution transformed the Sistine Chapel into a lasting testament to the power of fresco as both a technical and expressive form.

Choose an appropriate structure of the passage from the options given below.

(1) compare and contrast
(2) **expository** ✔
(3) cause and effect
(4) argumentative

QuickSarkari

Q.79

Read the passage carefully and answer the following questions.
Fresco painting, derived from the Italian word fresco meaning "fresh," is a celebrated mural technique that involves applying water-based pigments to freshly laid lime plaster. The process begins with preparing the wall surface by spreading wet plaster, which must remain damp to absorb the pigments effectively. As the plaster dries, the pigments chemically bond with it, making the artwork a permanent part of the wall. This method, known as buon fresco, requires the artist to work swiftly and precisely, completing each section—called a "giornata" or "day's work"—before the plaster sets. This technique reached its pinnacle during the Italian Renaissance, most notably through the work of Michelangelo. Though he considered himself primarily a sculptor, Michelangelo was commissioned by Pope Julius II to paint the ceiling of the Sistine Chapel, a project he undertook from 1508 to 1512. The ceiling features over 300 figures from the Book of Genesis, including the iconic Creation of Adam, which showcases his mastery of human anatomy and expressive composition. Michelangelo returned to the Sistine Chapel decades later to paint The Last Judgment on the altar wall (1536–1541), a dramatic and emotionally charged fresco that reflects his evolving style and deepening psychological insight. Despite his personal frustrations with the medium, Michelangelo's frescoes remain monumental achievements in art history. His disciplined approach and visionary execution transformed the Sistine Chapel into a lasting testament to the power of fresco as both a technical and expressive form.

What is the correct tone of the passage?

(1) Assertive
(2) Deductive
(3) Imperative
(4) Informative ✔

QuickSarkari

Q.80

Read the passage carefully and answer the following questions.
Fresco painting, derived from the Italian word fresco meaning "fresh," is a celebrated mural technique that involves applying water-based pigments to freshly laid lime plaster. The process begins with preparing the wall surface by spreading wet plaster, which must remain damp to absorb the pigments effectively. As the plaster dries, the pigments chemically bond with it, making the artwork a permanent part of the wall. This method, known as buon fresco, requires the artist to work swiftly and precisely, completing each section—called a "giornata" or "day's work"—before the plaster sets. This technique reached its pinnacle during the Italian Renaissance, most notably through the work of Michelangelo. Though he considered himself primarily a sculptor, Michelangelo was commissioned by Pope Julius II to paint the ceiling of the Sistine Chapel, a project he undertook from 1508 to 1512. The ceiling features over 300 figures from the Book of Genesis, including the iconic Creation of Adam, which showcases his mastery of human anatomy and expressive composition. Michelangelo returned to the Sistine Chapel decades later to paint The Last Judgment on the altar wall (1536–1541), a dramatic and emotionally charged fresco that reflects his evolving style and deepening psychological insight. Despite his personal frustrations with the medium, Michelangelo's frescoes remain monumental achievements in art history. His disciplined approach and visionary execution transformed the Sistine Chapel into a lasting testament to the power of fresco as both a technical and expressive form.

Find the correct synonym for the word pinnacle in the passage.

(1) oracle
(2) reek
(3) sneak
(4) **peak ✔**

Hindi Language and Comprehension

Q.81 नीचे दिए गए वाक्य के किस भाग में वर्तनी संबंधी अशुद्धिहै ?
उसे कथा कहने की तीव्र आकांछा हो रही है ।

(1) उसे कथा
(2) **आकांछा ✔**
(3) हो रही है ।
(4) कहने की तीव्र

Q.82 निम्नलिखित वाक्य में रेखांकित शब्द के विलोम शब्द का चयन दिए गए विकल्पों में से कीजिए- जगत के 'बाह्य' रूप को देखकर मोहित न होइए।

(1) मानसिक
(2) बौद्धिक
(3) **आंतरिक ✔**
(4) आत्मिक

Q.83 'परीक्षा में सफलता प्राप्त करने के लिए सलीम ----------पढ़ता है।' वाक्य के रिक्त स्थान के लिए क्रिया-विशेषण शब्द कौन-सा है?

(1) विज्ञान
(2) कुंजी
(3) **नियमित ✔**
(4) किताब

Q.84 उन्हें यह देखकर बड़ा आश्चर्य हुआ ।
उपर्युक्त रेखांकित शब्द का पर्यायवाची क्या होगा ?

(1) विशाल ✔
(2) जटिल
(3) भयानक
(4) गंभीर

Q.85 नीचे दिए गए वाक्यों में से वर्तनी की दृष्टि से शुद्ध वाक्य का चयन कीजिए।

(1) मेरा नाम शभूनाथ है।
(2) संगीत में निरसता थी।
(3) खरगोश निरीह पशु है। ✔
(4) नेपाल के राजा हिंदु हैं।

Q.86 नीचे दिए गए वाक्य खंडों को सही क्रम में व्यवस्थित करें -
1. कम्पन बढ़
2. उसके हृदय
3. रहे थे
4. में जैसे

(1) 2413 ✔
(2) 2134
(3) 4132
(4) 1324

Q.87 निम्नलिखित वाक्य के रेखांकित शब्द का पर्यायवाची कौन-सा नहीं है?
'सत्संग में आज श्री कृष्ण की महिमा का गुणगान हुआ।'

(1) गरिमा
(2) शुभ ✔
(3) महत्ता
(4) गौरव

Q.88 मेरे घर .....चार आदमी हैं ।
उपर्युक्त वाक्य में रिक्त स्थान की पूर्ति के लिए उचित कारक शब्द का चयन करें –

(1) का
(2) में ✔
(3) ने
(4) से

Q.89 उपयुक्त 'क्रिया' का चयन कर रिक्त स्थान की पूर्ति कीजिए ।
'राघव साइकिल .....रहा है।'

(1) उड़ा
(2) घुला
(3) सुला
(4) चला ✔

Quick Sarkari

Q.90 निम्नांकित विकल्पों में से उचित क्रिया का चयन करके वाक्य पूर्ण करें- परीक्षा की तैयारी के लिए बच्चों ने सारी रात जागकर..... की।

(1) पढ़े

(2) पढना

(3) पढ़ते

(4) **पढ़ाई ✔**

Q.91 वाक्य में रेखांकित शब्द का सही विलोम चुनिए।

'रोहन ने सुरेश के साथ घात किया है ।'

(1) अचर

(2) नगर

(3) **प्रतिघात ✔**

(4) चतुर

Q.92 दिए गए वाक्य के रिक्त स्थान में क्रिया-विशेषण शब्द का प्रयोग करें - 'पक्षी दाना चुगकर उड़ गये।'

(1) नहीं

(2) हरेक

(3) तक

(4) **उधर ✔**

Q.93 निम्नलिखित विकल्पों में से रेखांकित शब्द का विलोम पहचानिए।

'इस वर्ष वर्षा अपेक्षाकृत न्यून होने के कारण फसल प्रभावित हो गई है।'

(1) अभिज्ञ

(2) क्षर

(3) **अधिक ✔**

(4) सुकाल

Q.94 दिए गए वाक्य को सही क्रम में लगाइए- (1)किताब (2)पढ़ (3)रही (4)है (5)रिया

(1) 4 5 1 2 3

(2) **5 1 2 3 4 ✔**

(3) 2 3 4 5 1

(4) 1 2 3 4 5

Q.95 'नाक में नकेल डालना' मुहावरा का सही अर्थ क्या होगा ?

(1) **पूरी तरह वश में करना ✔**

(2) तमाशा दिखाना

(3) इलाज करना

(4) घृणा दिलाना

QuickSarkari.com | WhatsApp Channel | Telegram: t.me/quick_sarkari

Q.96

निम्नलिखित गद्यांश को ध्यानपूर्वक पढ़कर पूछे गये प्रश्नों के सही उत्तर दीजिए।
सत्यनिष्ठा जीवन का वह मूल्य है जो व्यक्ति को सत्य के मार्ग पर अडिग रखता है तथा सामाजिक व्यवस्था को मजबूत बनाता है।
यह गुण न केवल व्यक्तिगत सफलता का आधार है बल्कि राष्ट्र निर्माण का भी प्राणतत्व है। भ्रष्टाचार और अनैतिकता के इस युग में सत्यनिष्ठा ही समाज को पतन से बचाती है। व्यक्तिगत स्तर पर सत्यनिष्ठा आत्मविश्वास बढ़ाती है तथा मानसिक शांति प्रदान करती है। कार्यालय में ईमानदार कर्मचारी को सम्मान प्राप्त होता है तथा प्रमोशन मिलता है। शिक्षा क्षेत्र में सत्यनिष्ठावान शिक्षक छात्रों को आदर्श प्रस्तुत करते हैं। राजनीति में यह जनसेवा को प्राथमिकता देती है। उद्योगपतियों के लिए सत्यनिष्ठा उपभोक्ता विश्वास अर्जित करती है। परिवार में सत्यनिष्ठा विश्वास का आधार बनती है तथा संतान को नैतिक मूल्य सिखाती है। सामाजिक जीवन में यह साम्प्रदायिक सद्भाव को बढ़ावा देती है। पर्यावरण संरक्षण में सत्यनिष्ठापूर्ण प्रयास ही स्थायी समाधान दे सकते हैं।
अंत में सत्यनिष्ठा ही सच्ची अमीरी है जो व्यक्ति को आंतरिक संतुष्टि प्रदान करती है तथा समाज को प्रेरित करती है।

भ्रष्टाचार के युग में सत्यनिष्ठा समाज को किससे बचाती है?

(1) आर्थिक विकास से
(2) वैज्ञानिक प्रगति से
(3) **पतन से ✔**
(4) सांस्कृतिक उत्थान से

Q.97

निम्नलिखित गद्यांश को ध्यानपूर्वक पढ़कर पूछे गये प्रश्नों के सही उत्तर दीजिए।
सत्यनिष्ठा जीवन का वह मूल्य है जो व्यक्ति को सत्य के मार्ग पर अडिग रखता है तथा सामाजिक व्यवस्था को मजबूत बनाता है।
यह गुण न केवल व्यक्तिगत सफलता का आधार है बल्कि राष्ट्र निर्माण का भी प्राणतत्व है। भ्रष्टाचार और अनैतिकता के इस युग में सत्यनिष्ठा ही समाज को पतन से बचाती है। व्यक्तिगत स्तर पर सत्यनिष्ठा आत्मविश्वास बढ़ाती है तथा मानसिक शांति प्रदान करती है। कार्यालय में ईमानदार कर्मचारी को सम्मान प्राप्त होता है तथा प्रमोशन मिलता है। शिक्षा क्षेत्र में सत्यनिष्ठावान शिक्षक छात्रों को आदर्श प्रस्तुत करते हैं। राजनीति में यह जनसेवा को प्राथमिकता देती है। उद्योगपतियों के लिए सत्यनिष्ठा उपभोक्ता विश्वास अर्जित करती है। परिवार में सत्यनिष्ठा विश्वास का आधार बनती है तथा संतान को नैतिक मूल्य सिखाती है। सामाजिक जीवन में यह साम्प्रदायिक सद्भाव को बढ़ावा देती है। पर्यावरण संरक्षण में सत्यनिष्ठापूर्ण प्रयास ही स्थायी समाधान दे सकते हैं।
अंत में सत्यनिष्ठा ही सच्ची अमीरी है जो व्यक्ति को आंतरिक संतुष्टि प्रदान करती है तथा समाज को प्रेरित करती है।

गद्यांश के अनुसार सत्यनिष्ठा का मुख्य कार्य क्या है?

(1) भौतिक समृद्धि प्राप्त करना
(2) राजनीतिक लाभ कमाना
(3) **सत्य के मार्ग पर अडिग रखना ✔**
(4) परिवार का विस्तार करना

Q.98

निम्नलिखित गद्यांश को ध्यानपूर्वक पढ़कर पूछे गये प्रश्नों के सही उत्तर दीजिए।
सत्यनिष्ठा जीवन का वह मूल्य है जो व्यक्ति को सत्य के मार्ग पर अडिग रखता है तथा सामाजिक व्यवस्था को मजबूत बनाता है।
यह गुण न केवल व्यक्तिगत सफलता का आधार है बल्कि राष्ट्र निर्माण का भी प्राणतत्व है। भ्रष्टाचार और अनैतिकता के इस युग में सत्यनिष्ठा ही समाज को पतन से बचाती है। व्यक्तिगत स्तर पर सत्यनिष्ठा आत्मविश्वास बढ़ाती है तथा मानसिक शांति प्रदान करती है। कार्यालय में ईमानदार कर्मचारी को सम्मान प्राप्त होता है तथा प्रमोशन मिलता है। शिक्षा क्षेत्र में सत्यनिष्ठावान शिक्षक छात्रों को आदर्श प्रस्तुत करते हैं। राजनीति में यह जनसेवा को प्राथमिकता देती है। उद्योगपतियों के लिए सत्यनिष्ठा उपभोक्ता विश्वास अर्जित करती है। परिवार में सत्यनिष्ठा विश्वास का आधार बनती है तथा संतान को नैतिक मूल्य सिखाती है। सामाजिक जीवन में यह साम्प्रदायिक सद्भाव को बढ़ावा देती है। पर्यावरण संरक्षण में सत्यनिष्ठापूर्ण प्रयास ही स्थायी समाधान दे सकते हैं।
अंत में सत्यनिष्ठा ही सच्ची अमीरी है जो व्यक्ति को आंतरिक संतुष्टि प्रदान करती है तथा समाज को प्रेरित करती है।

गद्यांश के अनुसार सत्यनिष्ठा व्यक्तिगत स्तर पर क्या प्रदान करती है?

(1) राजनीतिक शक्ति
(2) भौतिक संपत्ति
(3) **मानसिक शांति ✔**
(4) सामाजिक प्रसिद्धि

Q.99

निम्नलिखित गद्यांश को ध्यानपूर्वक पढ़कर पूछे गये प्रश्नों के सही उत्तर दीजिए।
सत्यनिष्ठा जीवन का वह मूल्य है जो व्यक्ति को सत्य के मार्ग पर अडिग रखता है तथा सामाजिक व्यवस्था को मजबूत बनाता है।
यह गुण न केवल व्यक्तिगत सफलता का आधार है बल्कि राष्ट्र निर्माण का भी प्राणतत्व है। भ्रष्टाचार और अनैतिकता के इस युग में सत्यनिष्ठा ही समाज को पतन से बचाती है। व्यक्तिगत स्तर पर सत्यनिष्ठा आत्मविश्वास बढ़ाती है तथा मानसिक शांति प्रदान करती है। कार्यालय में ईमानदार कर्मचारी को सम्मान प्राप्त होता है तथा प्रमोशन मिलता है। शिक्षा क्षेत्र में सत्यनिष्ठावान शिक्षक छात्रों को आदर्श प्रस्तुत करते हैं। राजनीति में यह जनसेवा को प्राथमिकता देती है। उद्योगपतियों के लिए सत्यनिष्ठा उपभोक्ता विश्वास अर्जित करती है। परिवार में सत्यनिष्ठा विश्वास का आधार बनती है तथा संतान को नैतिक मूल्य सिखाती है। सामाजिक जीवन में यह साम्प्रदायिक सद्भाव को बढ़ावा देती है। पर्यावरण संरक्षण में सत्यनिष्ठापूर्ण प्रयास ही स्थायी समाधान दे सकते हैं।
अंत में सत्यनिष्ठा ही सच्ची अमीरी है जो व्यक्ति को आंतरिक संतुष्टि प्रदान करती है तथा समाज को प्रेरित करती है।

गद्यांश के अनुसार उद्योगपतियों के लिए सत्यनिष्ठा क्या अर्जित करती है?

(1) बाजार विस्तार
(2) सरकारी अनुदान
(3) प्रतिस्पर्धा कम करना
(4) **उपभोक्ता विश्वास ✔**

Q.100

निम्नलिखित गद्यांश को ध्यानपूर्वक पढ़कर पूछे गये प्रश्नों के सही उत्तर दीजिए।
सत्यनिष्ठा जीवन का वह मूल्य है जो व्यक्ति को सत्य के मार्ग पर अडिग रखता है तथा सामाजिक व्यवस्था को मजबूत बनाता है।
यह गुण न केवल व्यक्तिगत सफलता का आधार है बल्कि राष्ट्र निर्माण का भी प्राणतत्व है। भ्रष्टाचार और अनैतिकता के इस युग में सत्यनिष्ठा ही समाज को पतन से बचाती है। व्यक्तिगत स्तर पर सत्यनिष्ठा आत्मविश्वास बढ़ाती है तथा मानसिक शांति प्रदान करती है। कार्यालय में ईमानदार कर्मचारी को सम्मान प्राप्त होता है तथा प्रमोशन मिलता है। शिक्षा क्षेत्र में सत्यनिष्ठावान शिक्षक छात्रों को आदर्श प्रस्तुत करते हैं। राजनीति में यह जनसेवा को प्राथमिकता देती है। उद्योगपतियों के लिए सत्यनिष्ठा उपभोक्ता विश्वास अर्जित करती है। परिवार में सत्यनिष्ठा विश्वास का आधार बनती है तथा संतान को नैतिक मूल्य सिखाती है। सामाजिक जीवन में यह साम्प्रदायिक सद्भाव को बढ़ावा देती है। पर्यावरण संरक्षण में सत्यनिष्ठापूर्ण प्रयास ही स्थायी समाधान दे सकते हैं।
अंत में सत्यनिष्ठा ही सच्ची अमीरी है जो व्यक्ति को आंतरिक संतुष्टि प्रदान करती है तथा समाज को प्रेरित करती है।

गद्यांश के अनुसार परिवार में सत्यनिष्ठा किसका आधार बनती है?

(1) विश्वास ✔
(2) भोजन
(3) धन संचय
(4) यात्रा

Assistant Teacher (Primary) – PRT

Q.101 What does the principle of Sequentiality suggest about the order of developmental milestones in children?
बच्चों में विकासात्मक उपलब्धियों (माइलस्टोन) के क्रम के बारे में अनुक्रमिकता का सिद्धांत क्या सुझाता है?

(1) Development achieves a plateau at the adolescent stage. / किशोरावस्था में विकास एक पठार (स्थिरता) पर पहुँच जाता है।
(2) Development is influenced solely by environmental factors. / विकास केवल पर्यावरणीय कारकों से प्रभावित होता है।
(3) Development follows a pattern where one stage leads to the next. / विकास एक ऐसे प्रतिरूप का अनुसरण करता है जिसमें एक अवस्था अगली अवस्था की ओर ले जाती है। ✔
(4) Children develop specific responses before general activities. / बच्चे सामान्य क्रियाओं से पहले विशिष्ट अनुक्रियाएँ विकसित करते हैं।

Q.102 Which component of RTE-2009 is central to improving teacher availability in elementary schools?
RTE-2009 का कौन-सा घटक प्रारंभिक विद्यालयों में शिक्षकों की उपलब्धता में सुधार के लिए केंद्रीय है?

(1) Prescribed pupil–teacher ratio (PTR) norms / निर्धारित छात्र–शिक्षक अनुपात (PTR) मानदंड ✔
(2) Annual national merit tests for teachers / शिक्षकों के लिए वार्षिक राष्ट्रीय योग्यता परीक्षाएँ
(3) Mandatory transfer of teachers every three years / प्रत्येक तीन वर्ष में शिक्षकों का अनिवार्य स्थानांतरण
(4) Allowing teachers to work part-time in private institutions / शिक्षकों को निजी संस्थानों में अंशकालिक कार्य करने की अनुमति देना

Q.103 If a policy aims to promote harmony in a multicultural and multireligious society, which approach is most effective?
यदि कोई नीति बहुसांस्कृतिक और बहुधार्मिक समाज में सद्भाव को बढ़ावा देने का लक्ष्य रखती है, तो कौन-सा दृष्टिकोण सबसे प्रभावी है?

(1) Respecting different cultures and religions / विभिन्न संस्कृतियों और धर्मों का सम्मान करना ✔
(2) Ignoring differences among communities / समुदायों के बीच के अंतरों की उपेक्षा करना
(3) Enforcing a single culture for all citizens / सभी नागरिकों पर एक ही संस्कृति थोपना
(4) Discouraging cultural expression / सांस्कृतिक अभिव्यक्ति को हतोत्साहित करना

Q.104 Which principle of development explains that changes in an individual occur from conception to death and at each stage what happens influences the next?

विकास का कौन-सा सिद्धांत यह स्पष्ट करता है कि व्यक्ति में परिवर्तन गर्भाधान से मृत्यु तक होते हैं और प्रत्येक अवस्था में जो होता है वह अगली अवस्था को प्रभावित करता है?

(1) Differentiality / विभेदीकरण

(2) Generality to Specificity / सामान्य से विशिष्ट की ओर

(3) **Continuity / निरंतरता ✔**

(4) Sequentiality / अनुक्रमिकता

Q.105 What is one of the major impacts of caste-based discrimination in India?

भारत में जाति-आधारित भेदभाव का एक प्रमुख प्रभाव क्या है?

(1) It ensures equal representation of all castes in government positions. / यह सरकारी पदों पर सभी जातियों का समान प्रतिनिधित्व सुनिश्चित करता है।

(2) **It divides society into artificial groups based on caste rather than merit. / यह समाज को योग्यता के बजाय जाति के आधार पर कृत्रिम समूहों में विभाजित करता है। ✔**

(3) It encourages unity among different castes in the political domain. / यह राजनीतिक क्षेत्र में विभिन्न जातियों के बीच एकता को प्रोत्साहित करता है।

(4) It promotes economic equality among different castes. / यह विभिन्न जातियों के बीच आर्थिक समानता को बढ़ावा देता है।

Q.106 When considering the development of personality in children, which aspect is most central to its definition?

बच्चों में व्यक्तित्व के विकास पर विचार करते समय, कौन-सा पहलू इसकी परिभाषा के लिए सबसे केंद्रीय है?

(1) Occasional academic achievements / कभी-कभार की शैक्षणिक उपलब्धियाँ

(2) Random emotional outbursts during play / खेल के दौरान यादृच्छिक भावनात्मक विस्फोट

(3) **Stable behavioral and emotional characteristics / स्थिर व्यवहारगत और भावनात्मक विशेषताएँ ✔**

(4) Isolated peer friendships at school / विद्यालय में पृथक साथी मित्रताएँ

Q.107 Higher dropout rates among SC/ST students than those among other groups primarily indicate a failure to achieve social equality through education. This reflects:

अन्य समूहों की तुलना में SC/ST विद्यार्थियों में अधिक ड्रॉपआउट दर मुख्य रूप से शिक्षा के माध्यम से सामाजिक समानता प्राप्त करने में विफलता को इंगित करती है। यह किसे दर्शाता है?

(1) **Entrenched societal stratification / गहराई से जड़ जमाए सामाजिक स्तरीकरण ✔**

(2) Weakened sense of nationalism / राष्ट्रवाद की कमज़ोर भावना

(3) Lack of curriculum transformation / पाठ्यचर्या रूपांतरण का अभाव

(4) Overemphasis on mother tongue / मातृभाषा पर अत्यधिक बल

Q.108 A teacher is developing a lesson plan to address multi-dimensional poverty among girls. Which component is most essential for effective learning outcomes?

एक शिक्षक बालिकाओं में बहुआयामी गरीबी को संबोधित करने के लिए एक पाठ योजना विकसित कर रहा है। प्रभावी अधिगम परिणामों के लिए कौन-सा घटक सबसे आवश्यक है?

(1) Focusing only on textbook completion / केवल पाठ्यपुस्तक पूरी करने पर ध्यान केंद्रित करना

(2) **Incorporating life skills and agency-building activities / जीवन कौशल और कर्तृत्व (एजेंसी) निर्माण संबंधी गतिविधियों को शामिल करना ✔**

(3) Separating girls from boys during lessons / पाठ के दौरान बालिकाओं को बालकों से अलग करना

(4) Assigning extra homework to girls / बालिकाओं को अतिरिक्त गृहकार्य देना

Q.109 According to educational psychology, what does the principle of 'individual differences' mean in childhood growth and development?

शैक्षिक मनोविज्ञान के अनुसार, बाल्यावस्था की वृद्धि और विकास में 'वैयक्तिक भिन्नताओं' के सिद्धांत का क्या अर्थ है?

(1) All children reach milestones at the same time. / सभी बच्चे एक ही समय पर विकासात्मक उपलब्धियाँ प्राप्त करते हैं।

(2) Growth and development do not vary among children. / बच्चों में वृद्धि और विकास भिन्न नहीं होते।

(3) **Each child grows and develops at their own unique rate. / प्रत्येक बच्चा अपनी विशिष्ट दर से वृद्धि और विकास करता है। ✔**

(4) Children develop only through formal education. / बच्चों का विकास केवल औपचारिक शिक्षा के माध्यम से होता है।

Q.110 A developmental psychologist observes that an infant gains postural control of the neck before being able to coordinate shoulder and elbow movements, and only later develops precise manipulation using the fingers. This pattern of motor development best illustrates which principle of growth and development?

एक विकासात्मक मनोवैज्ञानिक देखता है कि एक शिशु कंधे और कोहनी की गतियों में समन्वय कर पाने से पहले गर्दन का आसनीय नियंत्रण प्राप्त कर लेता है, और बाद में ही उंगलियों का उपयोग करके सूक्ष्म संचालन विकसित करता है। गामक विकास का यह प्रतिरूप वृद्धि और विकास के किस सिद्धांत को सबसे अच्छी तरह दर्शाता है?

(1) **Cephalocaudal development principle / मस्तकाधोमुखी (सेफेलोकॉडल) विकास का सिद्धांत ✔**

(2) Predictability in development principle / विकास में पूर्वानुमेयता का सिद्धांत

(3) Proximodistal development principle / समीप-दूराभिमुख (प्रॉक्सिमोडिस्टल) विकास का सिद्धांत

(4) Continuity of development principle / विकास की निरंतरता का सिद्धांत

Q.111 What is a major societal challenge in India involving lack of resources?

भारत में संसाधनों के अभाव से संबंधित एक प्रमुख सामाजिक चुनौती क्या है?

(1) Cultural heritage / सांस्कृतिक विरासत

(2) **Poverty / गरीबी ✔**

(3) Diversity / विविधता

(4) Gender equality / लैंगिक समानता

Q.112 Which activity is an example of an activity for fine motor skill development?

कौन-सी गतिविधि सूक्ष्म गामक कौशल विकास की गतिविधि का एक उदाहरण है?

(1) Climbing a ladder / सीढ़ी पर चढ़ना

(2) **Buttoning clothes / कपड़ों के बटन लगाना ✔**

(3) Jumping rope / रस्सी कूदना

(4) Running in a park / पार्क में दौड़ना

Q.113 Which branch of psychology focuses on the study of teaching and learning processes in educational settings?

मनोविज्ञान की कौन-सी शाखा शैक्षिक परिवेश में शिक्षण और अधिगम प्रक्रियाओं के अध्ययन पर केंद्रित है?

(1) Industrial Psychology / औद्योगिक मनोविज्ञान

(2) Abnormal Psychology / असामान्य मनोविज्ञान

(3) **Educational Psychology / शैक्षिक मनोविज्ञान ✔**

(4) Child Psychology / बाल मनोविज्ञान

Q.114 A teacher observes that a group of children in her classroom are at different stages of mastering fine motor skills, with some able to write clearly and others still struggling to hold a pencil. Which principle of growth and development does this situation best illustrate?

एक शिक्षिका देखती है कि उसकी कक्षा में बच्चों का एक समूह सूक्ष्म गामक कौशलों में निपुणता की विभिन्न अवस्थाओं में है, जिनमें से कुछ स्पष्ट रूप से लिख पाते हैं और अन्य अभी भी पेंसिल पकड़ने में संघर्ष कर रहे हैं। यह स्थिति वृद्धि और विकास के किस सिद्धांत को सबसे अच्छी तरह दर्शाती है?

(1) Continuity and Gradualness / निरंतरता और क्रमिकता

(2) Sequential and Directional Patterns / अनुक्रमिक और दिशात्मक प्रतिरूप

(3) Integration and Predictability / एकीकरण और पूर्वानुमेयता

(4) **Individual Variation and Rates / वैयक्तिक भिन्नता और दरें ✔**

Q.115 National integration, as viewed by Dr. S. Radhakrishnan, primarily develops in the:

डॉ. एस. राधाकृष्णन के विचार में, राष्ट्रीय एकता मुख्य रूप से किसमें विकसित होती है?

(1) **Minds and hearts of people / लोगों के मन और हृदय ✔**

(2) Political institutions / राजनीतिक संस्थाएँ

(3) Physical infrastructure / भौतिक अवसंरचना

(4) Economic systems / आर्थिक प्रणालियाँ

Q.116 Which of the following was a major recommendation of the Secondary Education Commission (1952–53)?

निम्नलिखित में से कौन-सी माध्यमिक शिक्षा आयोग (1952–53) की एक प्रमुख सिफ़ारिश थी?

(1) **Establishment of multipurpose secondary schools / बहुउद्देशीय माध्यमिक विद्यालयों की स्थापना ✔**

(2) Introduction of the Mid-Day Meal Scheme / मध्याह्न भोजन योजना का आरंभ

(3) Universalisation of higher education / उच्च शिक्षा का सार्वभौमिकरण

(4) Introduction of the Common School System / समान विद्यालय प्रणाली का आरंभ

Q.117 A teacher observes persistent tension between student sub-groups based on language loyalties. To apply the objective of peace education, which method should the teacher prioritize?

एक शिक्षक भाषायी निष्ठाओं के आधार पर विद्यार्थियों के उप-समूहों के बीच लगातार तनाव देखता है। शांति शिक्षा के उद्देश्य को लागू करने के लिए, शिक्षक को किस विधि को प्राथमिकता देनी चाहिए?

(1) Enforcing strict common rules / कठोर सामान्य नियम लागू करना

(2) **Fostering collective conflict resolution / सामूहिक संघर्ष समाधान को बढ़ावा देना ✔**

(3) Isolating conflicting student groups / परस्पर विरोधी विद्यार्थी समूहों को अलग करना

(4) Emphasizing individual merit solely / केवल व्यक्तिगत योग्यता पर बल देना

Q.118 In the context of Contemporary Indian Society, how does the process of socialization within formal education settings contribute to the development of individual identity?

समकालीन भारतीय समाज के संदर्भ में, औपचारिक शिक्षा परिवेश में समाजीकरण की प्रक्रिया व्यक्तिगत पहचान के विकास में किस प्रकार योगदान देती है?

(1) **It shapes values and norms through structured interaction / यह संरचित अंतःक्रिया के माध्यम से मूल्यों और मानदंडों को आकार देती है ✔**

(2) It mainly fosters individual career goals and aspirations / यह मुख्य रूप से व्यक्तिगत करियर लक्ष्यों और आकांक्षाओं को बढ़ावा देती है

(3) It teaches academic skills through unstructured interaction / यह असंरचित अंतःक्रिया के माध्यम से शैक्षणिक कौशल सिखाती है

(4) It provides only economic opportunities for individuals / यह व्यक्तियों को केवल आर्थिक अवसर प्रदान करती है

Q.119 Among the significant impacts of the University Education Commission, which outcome best represents the Commission's influence on the development of higher education policy in India?
विश्वविद्यालय शिक्षा आयोग के महत्वपूर्ण प्रभावों में से, कौन-सा परिणाम भारत में उच्च शिक्षा नीति के विकास पर आयोग के प्रभाव का सबसे अच्छा प्रतिनिधित्व करता है?

(1) Creation of primary schools in rural areas / ग्रामीण क्षेत्रों में प्राथमिक विद्यालयों का निर्माण
(2) Introduction of the 10+2+3 education system / 10+2+3 शिक्षा प्रणाली का आरंभ
(3) Launch of the National Literacy Mission / राष्ट्रीय साक्षरता मिशन का शुभारंभ
(4) **Establishment of the University Grants Commission / विश्वविद्यालय अनुदान आयोग की स्थापना ✔**

Q.120 In social studies, a key purpose of sociology is _____
सामाजिक अध्ययन में, समाजशास्त्र का एक प्रमुख उद्देश्य _____ है।

(1) Listing customs / रीति-रिवाजों को सूचीबद्ध करना
(2) **Studying society / समाज का अध्ययन करना ✔**
(3) Recording events / घटनाओं को अभिलिखित करना
(4) Preserving myths / मिथकों को संरक्षित करना

Q.121 Which of the following is not correct regarding the importance of the lesson plan?
पाठ योजना के महत्व के संबंध में निम्नलिखित में से कौन-सा सही नहीं है?

(1) It enables teachers to utilise the available time properly / यह शिक्षकों को उपलब्ध समय का उचित उपयोग करने में सक्षम बनाती है
(2) It gives confidence to teachers during teaching / यह शिक्षण के दौरान शिक्षकों को आत्मविश्वास प्रदान करती है
(3) **It makes classroom activities rigid and forced upon / यह कक्षा की गतिविधियों को कठोर और थोपा हुआ बनाती है ✔**
(4) It makes teaching systematic and well organised / यह शिक्षण को व्यवस्थित और सुसंगठित बनाती है

Q.122 The use of multiple sources for comprehensive assessment helps teachers to:
व्यापक आकलन के लिए अनेक स्रोतों का उपयोग शिक्षकों की किसमें सहायता करता है?

(1) Reduce the need for varied evidence of student performance / विद्यार्थी के प्रदर्शन के विविध साक्ष्यों की आवश्यकता को कम करने में
(2) Limit assessment to one fixed method of data collection / आकलन को आँकड़ा संग्रह की एक निश्चित विधि तक सीमित करने में
(3) Depend only on a single test for evaluating achievement / उपलब्धि के मूल्यांकन के लिए केवल एक परीक्षण पर निर्भर रहने में
(4) **Gain a fuller picture of student learning and progress / विद्यार्थी के अधिगम और प्रगति की अधिक पूर्ण तस्वीर प्राप्त करने में ✔**

Q.123 Who is considered an iconic cultural figure discussed for understanding the self in Perspectives in Education?
'शिक्षा में परिप्रेक्ष्य' (Perspectives in Education) में स्वयं को समझने के लिए किस प्रतिष्ठित सांस्कृतिक व्यक्तित्व की चर्चा की गई है?

(1) **Mahatma Gandhi / महात्मा गांधी ✔**
(2) Jawaharlal Nehru / जवाहरलाल नेहरू
(3) B. R. Ambedkar / बी. आर. अंबेडकर
(4) Rabindranath Tagore / रवींद्रनाथ टैगोर

Q.124 Which among the following is NOT the role of a teacher in bringing about change in the society?

निम्नलिखित में से कौन-सी समाज में परिवर्तन लाने में शिक्षक की भूमिका नहीं है?

(1) Teachers are powerful elements in the society who have brought positive change through education / शिक्षक समाज के सशक्त तत्व हैं जिन्होंने शिक्षा के माध्यम से सकारात्मक परिवर्तन लाया है

(2) A teacher is considered as an agent of social change / शिक्षक को सामाजिक परिवर्तन का अभिकर्ता माना जाता है

(3) Teachers can solve all the social problems existing in the Indian society on their own / शिक्षक भारतीय समाज में विद्यमान सभी सामाजिक समस्याओं का समाधान अपने आप कर सकते हैं ✓

(4) A teacher acts as a role model for change and modernity in the society / शिक्षक समाज में परिवर्तन और आधुनिकता के लिए एक आदर्श के रूप में कार्य करता है

Q.125 What is a key difference between language learning and language acquisition?

भाषा अधिगम और भाषा अर्जन के बीच एक प्रमुख अंतर क्या है?

(1) Language learning happens naturally, while acquisition is formal / भाषा अधिगम स्वाभाविक रूप से होता है, जबकि अर्जन औपचारिक होता है

(2) Language learning is only for children, acquisition is for adults / भाषा अधिगम केवल बच्चों के लिए है, अर्जन वयस्कों के लिए है

(3) Language acquisition is based on imitation, learning is not / भाषा अर्जन अनुकरण पर आधारित है, अधिगम नहीं

(4) Acquisition is subconscious; learning is conscious / अर्जन अवचेतन होता है; अधिगम सचेतन होता है ✓

Q.126 Which maxim of teaching emphasizes that learners should first be given real, tangible experiences before introducing abstract ideas?

शिक्षण का कौन-सा सूत्र इस बात पर बल देता है कि अमूर्त विचारों को प्रस्तुत करने से पहले शिक्षार्थियों को वास्तविक, मूर्त अनुभव दिए जाने चाहिए?

(1) Psychological to logical / मनोवैज्ञानिक से तार्किक की ओर

(2) Particular to general / विशिष्ट से सामान्य की ओर

(3) Known to unknown / ज्ञात से अज्ञात की ओर

(4) Concrete to abstract / मूर्त से अमूर्त की ओर ✓

Q.127 Which step in lesson planning ensures that teaching is focused and directed towards clear outcomes?

पाठ योजना का कौन-सा चरण यह सुनिश्चित करता है कि शिक्षण केंद्रित हो और स्पष्ट परिणामों की ओर निर्देशित हो?

(1) Stating specific objectives of the lesson / पाठ के विशिष्ट उद्देश्यों का कथन करना ✓

(2) Grouping students by ability / विद्यार्थियों को योग्यता के अनुसार समूहों में बाँटना

(3) Scheduling time for breaks / अवकाश के लिए समय निर्धारित करना

(4) Listing available teaching aids / उपलब्ध शिक्षण सहायक सामग्री को सूचीबद्ध करना

Q.128 In evaluating curriculum types, which principle best ensures that curriculum content remains relevant, inclusive, and adaptable to societal changes?

पाठ्यचर्या के प्रकारों का मूल्यांकन करते समय, कौन-सा सिद्धांत यह सबसे अच्छी तरह सुनिश्चित करता है कि पाठ्यचर्या की विषयवस्तु प्रासंगिक, समावेशी और सामाजिक परिवर्तनों के अनुकूल बनी रहे?

(1) Continuity Principle / निरंतरता का सिद्धांत

(2) Integration Principle / एकीकरण का सिद्धांत

(3) Flexibility Principle / लचीलेपन का सिद्धांत ✓

(4) Scope Principle / विस्तार-क्षेत्र का सिद्धांत

Q.129 What does the concept 'rule-governed system' imply about language?

'नियम-शासित व्यवस्था' की अवधारणा भाषा के बारे में क्या संकेत करती है?

(1) Language is learned without structure. / भाषा बिना संरचना के सीखी जाती है।

(2) **Language follows grammatical structures. / भाषा व्याकरणिक संरचनाओं का अनुसरण करती है। ✓**

(3) Language changes randomly. / भाषा यादृच्छिक रूप से बदलती है।

(4) Language is only spoken. / भाषा केवल बोली जाती है।

Q.130 A teacher observes that children who use multiple languages at home demonstrate different patterns of early literacy acquisition compared to their monolingual peers. What is the primary reason for this difference, considering the nature of multilingualism?

एक शिक्षक देखता है कि जो बच्चे घर पर अनेक भाषाओं का उपयोग करते हैं, वे अपने एकभाषी साथियों की तुलना में प्रारंभिक साक्षरता अर्जन के भिन्न प्रतिरूप प्रदर्शित करते हैं। बहुभाषिकता की प्रकृति को ध्यान में रखते हुए, इस अंतर का प्राथमिक कारण क्या है?

(1) Using more than one language makes children mix up reading skills / एक से अधिक भाषा का उपयोग करने से बच्चे पठन कौशलों को आपस में मिला देते हैं

(2) Children copy literacy habits from friends at school / बच्चे विद्यालय में मित्रों से साक्षरता संबंधी आदतों की नकल करते हैं

(3) Hearing less of one language makes literacy develop faster / किसी एक भाषा को कम सुनने से साक्षरता तेज़ी से विकसित होती है

(4) **Skills from one language can help children learn literacy in another language / एक भाषा के कौशल बच्चों को दूसरी भाषा में साक्षरता सीखने में सहायता कर सकते हैं ✓**

Q.131 Vocabulary growth during pre-school years is largely supported by:

पूर्व-विद्यालयी वर्षों के दौरान शब्दावली की वृद्धि मुख्य रूप से किसके द्वारा समर्थित होती है?

(1) **Rich exposure to spoken language / मौखिक भाषा से समृद्ध अनावरण (एक्सपोज़र) ✓**

(2) Grammar-focused instruction / व्याकरण-केंद्रित अनुदेशन

(3) Isolated drill activities / पृथक अभ्यास (ड्रिल) गतिविधियाँ

(4) Early memorization of written words / लिखित शब्दों का प्रारंभिक कंठस्थीकरण

Q.132 While discussing the process for classroom celebration, a facilitator emphasizes selecting an icon based on regional resonance. What is the main advantage of this approach?

कक्षा में उत्सव मनाने की प्रक्रिया पर चर्चा करते समय, एक सुविधाप्रदाता क्षेत्रीय प्रासंगिकता के आधार पर किसी प्रतीक-पुरुष (आइकन) के चयन पर बल देता है। इस दृष्टिकोण का मुख्य लाभ क्या है?

(1) Ensuring only famous icons are celebrated nationwide / यह सुनिश्चित करना कि केवल प्रसिद्ध प्रतीक-पुरुषों का ही राष्ट्रव्यापी उत्सव मनाया जाए

(2) **Enhancing student connection by relating to local cultural heritage / स्थानीय सांस्कृतिक विरासत से जोड़कर विद्यार्थियों के जुड़ाव को बढ़ाना ✓**

(3) Focusing solely on textbook examples for activities / गतिविधियों के लिए केवल पाठ्यपुस्तक के उदाहरणों पर ध्यान केंद्रित करना

(4) Limiting celebration to urban educational settings / उत्सव को केवल शहरी शैक्षिक परिवेश तक सीमित करना

Q.133 Observation becomes educationally meaningful when it is followed by:

अवलोकन शैक्षिक रूप से तब सार्थक बनता है जब उसके बाद क्या किया जाए?

(1) Comparison / तुलना

(2) Instruction / अनुदेशन

(3) Evaluation / मूल्यांकन

(4) **Reflection / चिंतन ✓**

Q.134 How does understanding others through observation contribute to self-understanding?

अवलोकन के माध्यम से दूसरों को समझना आत्म-बोध में किस प्रकार योगदान देता है?

(1) It enhances your understanding of yourself. / यह आपकी स्वयं के बारे में समझ को बढ़ाता है। ✔

(2) It leads to isolation. / यह अलगाव की ओर ले जाता है।

(3) It eliminates the need for self-reflection. / यह आत्म-चिंतन की आवश्यकता को समाप्त कर देता है।

(4) It decreases self-awareness. / यह आत्म-जागरूकता को कम करता है।

Q.135 What is the key aspect of multilingualism in education?

शिक्षा में बहुभाषिकता का प्रमुख पहलू क्या है?

(1) The use of languages only for reading and writing without speaking or listening / बोलने या सुनने के बिना केवल पढ़ने और लिखने के लिए भाषाओं का उपयोग

(2) The ability to use and understand multiple languages in different contexts effectively / विभिन्न संदर्भों में अनेक भाषाओं का प्रभावी ढंग से उपयोग करने और उन्हें समझने की क्षमता ✔

(3) The need to learn only one language while ignoring all other languages entirely / अन्य सभी भाषाओं की पूर्णतः उपेक्षा करते हुए केवल एक भाषा सीखने की आवश्यकता

(4) The replacement of local languages completely with a single global language / स्थानीय भाषाओं को पूर्णतः एक ही वैश्विक भाषा से प्रतिस्थापित करना

Q.136 If a community celebrates an iconic figure annually, what is a likely outcome for the younger generation?

यदि कोई समुदाय प्रतिवर्ष किसी प्रतिष्ठित व्यक्तित्व का उत्सव मनाता है, तो युवा पीढ़ी के लिए इसका संभावित परिणाम क्या होगा?

(1) They see celebrations only as holidays with no meaning / वे उत्सवों को बिना किसी अर्थ के केवल छुट्टियों के रूप में देखते हैं

(2) They become uninterested in the figure's legacy / वे उस व्यक्तित्व की विरासत में रुचि खो देते हैं

(3) They ignore the values the figure represented / वे उस व्यक्तित्व द्वारा प्रतिनिधित्व किए गए मूल्यों की उपेक्षा करते हैं

(4) They develop a sense of identity / उनमें पहचान की भावना विकसित होती है ✔

Q.137 What is the main goal of teaching mathematics at the primary school level?

प्राथमिक विद्यालय स्तर पर गणित शिक्षण का मुख्य लक्ष्य क्या है?

(1) To make children complete worksheets quickly / बच्चों से कार्यपत्रक जल्दी पूरे करवाना

(2) To prepare students for high school exams / विद्यार्थियों को हाई स्कूल की परीक्षाओं के लिए तैयार करना

(3) To ensure students memorize all formulas / यह सुनिश्चित करना कि विद्यार्थी सभी सूत्र कंठस्थ कर लें

(4) To help children develop problem-solving skills / बच्चों में समस्या-समाधान कौशल विकसित करने में सहायता करना ✔

Q.138 Which of the following is not correct related to the content of Maxims?

शिक्षण सूत्रों की विषयवस्तु से संबंधित निम्नलिखित में से कौन-सा सही नहीं है?

(1) Analysis to synthesis / विश्लेषण से संश्लेषण की ओर

(2) Simple to complex / सरल से जटिल की ओर

(3) Rational to empirical / तार्किक (बौद्धिक) से अनुभवजन्य की ओर ✔

(4) Empirical to rational / अनुभवजन्य से तार्किक (बौद्धिक) की ओर

Q.139 How does a constructivist approach to pedagogy differ from traditional lecture-based methods?
शिक्षाशास्त्र का रचनावादी दृष्टिकोण पारंपरिक व्याख्यान-आधारित विधियों से किस प्रकार भिन्न है?

(1) It emphasizes learner engagement and knowledge construction. / यह शिक्षार्थी की संलग्नता और ज्ञान निर्माण पर बल देता है। ✔

(2) It limits opportunities for practical application of the theoretical concepts. / यह सैद्धांतिक अवधारणाओं के व्यावहारिक अनुप्रयोग के अवसरों को सीमित करता है।

(3) It discourages collaborative learning among students. / यह विद्यार्थियों के बीच सहयोगात्मक अधिगम को हतोत्साहित करता है।

(4) It relies solely on teacher's understanding and explanation of the topic. / यह पूर्णतः विषय के बारे में शिक्षक की समझ और व्याख्या पर निर्भर करता है।

Q.140 A teacher notices that students from similar backgrounds tend to form their own groups, excluding others, leading to some students feeling anxious and disengaged. Which group behavior patterns are most responsible for this situation?
एक शिक्षक देखता है कि समान पृष्ठभूमि वाले विद्यार्थी दूसरों को बाहर रखते हुए अपने स्वयं के समूह बना लेते हैं, जिससे कुछ विद्यार्थी चिंतित और असंलग्न महसूस करते हैं। इस स्थिति के लिए कौन-से समूह व्यवहार प्रतिरूप सबसे अधिक उत्तरदायी हैं?

(1) Norm formation and leadership patterns / मानदंड निर्माण और नेतृत्व प्रतिरूप

(2) Cliques and competitive patterns / गुटबंदी और प्रतिस्पर्धी प्रतिरूप ✔

(3) Conformity and social loafing / अनुरूपता और सामाजिक आलस्य (सोशल लोफ़िंग)

(4) Cooperative and emotional patterns / सहयोगात्मक और भावनात्मक प्रतिरूप

Q.141 When students use different-sized cubes to measure the same box, which problem will occur?
जब विद्यार्थी एक ही डिब्बे को मापने के लिए विभिन्न आकार के घनों का उपयोग करते हैं, तो कौन-सी समस्या उत्पन्न होगी?

(1) The cubes will change shape / घनों का आकार बदल जाएगा

(2) The box will look bigger / डिब्बा बड़ा दिखाई देगा

(3) The answers will be different for each student / प्रत्येक विद्यार्थी के उत्तर भिन्न होंगे ✔

(4) The work will become faster / कार्य तेज़ी से होगा

Q.142 What is a key skill for developing a vision of education?
शिक्षा की दृष्टि (विज़न) विकसित करने के लिए एक प्रमुख कौशल क्या है?

(1) Repetition / पुनरावृत्ति

(2) Imitation / अनुकरण

(3) Reflective thinking / चिंतनशील सोच ✔

(4) Memorization / कंठस्थीकरण

Q.143 Which of the following is a characteristic described by students as making a teacher effective?
निम्नलिखित में से कौन-सी विशेषता विद्यार्थियों द्वारा शिक्षक को प्रभावी बनाने वाली विशेषता के रूप में वर्णित की गई है?

(1) Came to class prepared / कक्षा में तैयारी करके आते थे ✔

(2) Published academic articles / शैक्षणिक लेख प्रकाशित किए थे

(3) Attended prestigious universities / प्रतिष्ठित विश्वविद्यालयों में अध्ययन किया था

(4) Had strict classroom rules / कक्षा के नियम कठोर थे

Q.144 Which psychological skill is most essential for a good facilitator to understand learners' needs?
शिक्षार्थियों की आवश्यकताओं को समझने के लिए एक अच्छे सुविधाप्रदाता के लिए कौन-सा मनोवैज्ञानिक कौशल सबसे आवश्यक है?

(1) Active listening and empathy / सक्रिय श्रवण और समानुभूति ✔
(2) Fast content delivery skills / तीव्र विषयवस्तु प्रस्तुतीकरण कौशल
(3) Strict rule enforcement only / केवल कठोर नियम पालन करवाना
(4) Mechanical repetition methods / यांत्रिक पुनरावृत्ति विधियाँ

Q.145 Effective school leaders promote quality education by:
प्रभावी विद्यालय प्रमुख गुणवत्तापूर्ण शिक्षा को किस प्रकार बढ़ावा देते हैं?

(1) Supporting teachers and student learning / शिक्षकों और विद्यार्थियों के अधिगम को समर्थन देकर ✔
(2) Centralising all decision making / सभी निर्णय-निर्माण को केंद्रीकृत करके
(3) Monitoring only examination results / केवल परीक्षा परिणामों की निगरानी करके
(4) Avoiding shared responsibility / साझा उत्तरदायित्व से बचकर

Q.146 During a school event, a teacher encourages students to engage in discussions about constitutional values and societal issues. How does this support the vision of education promoted by NEP 2020?
एक विद्यालय कार्यक्रम के दौरान, एक शिक्षक विद्यार्थियों को संवैधानिक मूल्यों और सामाजिक मुद्दों पर चर्चा में भाग लेने के लिए प्रोत्साहित करता है। यह NEP 2020 द्वारा प्रोत्साहित शिक्षा की दृष्टि का किस प्रकार समर्थन करता है?

(1) It restricts students to passive listening without engagement. / यह विद्यार्थियों को बिना संलग्नता के निष्क्रिय श्रवण तक सीमित करता है।
(2) It fosters holistic development and critical thinking through active participation. / यह सक्रिय सहभागिता के माध्यम से समग्र विकास और आलोचनात्मक चिंतन को बढ़ावा देता है। ✔
(3) It emphasizes rote memorization of historical facts for exam purposes. / यह परीक्षा के उद्देश्य से ऐतिहासिक तथ्यों को रटने पर बल देता है।
(4) It discourages open dialogue about societal challenges in the classroom. / यह कक्षा में सामाजिक चुनौतियों के बारे में खुले संवाद को हतोत्साहित करता है।

Q.147 Which type of play is most effective in fostering children's ability to understand social roles and negotiate rules within a group setting?
समूह परिवेश में सामाजिक भूमिकाओं को समझने और नियमों पर परस्पर सहमति बनाने की बच्चों की क्षमता को बढ़ावा देने में किस प्रकार का खेल सबसे प्रभावी है?

(1) Functional play / कार्यात्मक खेल
(2) Sociodramatic play / सामाजिक-नाटकीय खेल ✔
(3) Constructive play / रचनात्मक खेल
(4) Solitary play / एकाकी खेल

Q.148 In the context of classical conditioning, what role does a bell play when it is paired with food to make a dog salivate?
प्राचीन (क्लासिकल) अनुबंधन के संदर्भ में, जब कुत्ते की लार टपकाने के लिए घंटी को भोजन के साथ युग्मित किया जाता है, तो घंटी क्या भूमिका निभाती है?

(1) Conditioned response / अनुबंधित अनुक्रिया
(2) Neutral stimulus / तटस्थ उद्दीपक
(3) Unconditioned stimulus / अननुबंधित उद्दीपक
(4) Conditioned stimulus / अनुबंधित उद्दीपक ✔

Q.149 Which of the following defence mechanisms is MOST likely to manifest as attributing one's own unacceptable impulses onto another person?

निम्नलिखित में से कौन-सा रक्षा तंत्र अपने स्वयं के अस्वीकार्य आवेगों को किसी अन्य व्यक्ति पर आरोपित करने के रूप में प्रकट होने की सबसे अधिक संभावना रखता है?

(1) Isolation of affect / भाव का पृथक्करण

(2) **Projection / प्रक्षेपण ✔**

(3) Displacement / विस्थापन

(4) Reaction formation / प्रतिक्रिया निर्माण

Q.150 According to the humanistic philosophy of education, which core emotional quality is essential for a teacher to function successfully as a learning facilitator?

शिक्षा के मानवतावादी दर्शन के अनुसार, एक शिक्षक के लिए अधिगम सुविधाप्रदाता के रूप में सफलतापूर्वक कार्य करने हेतु कौन-सा मूल भावनात्मक गुण आवश्यक है?

(1) Organizational Clarity / संगठनात्मक स्पष्टता

(2) Subject Mastery / विषय पर प्रवीणता

(3) **Genuine Empathy / वास्तविक समानुभूति ✔**

(4) Strict Discipline / कठोर अनुशासन

Q.151 Which psychological attribute empowers a teacher-facilitator to be consistently judicious and objective while managing diverse student needs?

कौन-सा मनोवैज्ञानिक गुण एक शिक्षक-सुविधाप्रदाता को विद्यार्थियों की विविध आवश्यकताओं का प्रबंधन करते समय निरंतर विवेकशील और वस्तुनिष्ठ बने रहने में सक्षम बनाता है?

(1) Classroom management / कक्षा प्रबंधन

(2) **Cognitive clarity / संज्ञानात्मक स्पष्टता ✔**

(3) Genuine empathy / वास्तविक समानुभूति

(4) Academic proficiency / शैक्षणिक प्रवीणता

Q.152 A teacher asks students to listen to an audio story and later identify new words they understood but have not yet used in speech or writing. Which vocabulary type are the students primarily engaging with?

एक शिक्षक विद्यार्थियों से एक ऑडियो कहानी सुनने और बाद में उन नए शब्दों की पहचान करने के लिए कहता है जिन्हें उन्होंने समझ तो लिया है परंतु अभी तक बोलने या लिखने में उपयोग नहीं किया है। विद्यार्थी मुख्य रूप से किस प्रकार की शब्दावली से जुड़ रहे हैं?

(1) Morphological knowledge of word roots / शब्द-मूलों का रूपात्मक ज्ञान

(2) **Passive vocabulary through receptive listening activities / ग्रहणशील श्रवण गतिविधियों के माध्यम से निष्क्रिय शब्दावली ✔**

(3) Metalinguistic awareness through translation / अनुवाद के माध्यम से अधिभाषिक जागरूकता

(4) Active vocabulary via productive tasks / उत्पादक कार्यों के माध्यम से सक्रिय शब्दावली

Q.153 During the sensorimotor stage, which of the following is a key cognitive ability?

संवेदी-गामक अवस्था के दौरान, निम्नलिखित में से कौन-सी एक प्रमुख संज्ञानात्मक क्षमता है?

(1) **Object permanence and linking numbers to objects / वस्तु स्थायित्व और संख्याओं को वस्तुओं से जोड़ना ✔**

(2) Abstract reasoning and hypothesis testing / अमूर्त तर्क और परिकल्पना परीक्षण

(3) Symbolic thought and overgeneralization of language / प्रतीकात्मक चिंतन और भाषा का अति-सामान्यीकरण

(4) Organizing objects by categories and logical order / वस्तुओं को श्रेणियों और तार्किक क्रम के अनुसार व्यवस्थित करना

Q.154 A student who can accurately use a wide range of words while speaking and writing is demonstrating which aspect of vocabulary knowledge, considering both usage and understanding?
उपयोग और समझ दोनों को ध्यान में रखते हुए, जो विद्यार्थी बोलते और लिखते समय शब्दों की विस्तृत श्रृंखला का सटीक उपयोग कर सकता है, वह शब्दावली ज्ञान के किस पहलू का प्रदर्शन कर रहा है?

(1) Receptive vocabulary / ग्रहणशील शब्दावली
(2) Active vocabulary / सक्रिय शब्दावली ✔
(3) Passive vocabulary / निष्क्रिय शब्दावली
(4) Contextual vocabulary / प्रासंगिक शब्दावली

Q.155 Which of the following sentences uses correct subject-verb agreement?
निम्नलिखित में से किस वाक्य में कर्ता-क्रिया की सही अन्विति (subject-verb agreement) है?

(1) They enjoys the movie every weekend
(2) They enjoy the movie every weekends
(3) They enjoy the movie every weekend ✔
(4) They enjoying the movie every weekend

Q.156 During a math class, a student confidently explains the concept of 'pattern' and uses it correctly while solving problems. What does this demonstrate about the student's vocabulary knowledge?
गणित की कक्षा के दौरान, एक विद्यार्थी आत्मविश्वास से 'पैटर्न' की अवधारणा को समझाता है और समस्याएँ हल करते समय इसका सही उपयोग करता है। यह विद्यार्थी के शब्दावली ज्ञान के बारे में क्या प्रदर्शित करता है?

(1) The student is unaware of the term 'pattern'. / विद्यार्थी 'पैटर्न' शब्द से अनभिज्ञ है।
(2) The student has only passive vocabulary for 'pattern'. / विद्यार्थी के पास 'पैटर्न' के लिए केवल निष्क्रिय शब्दावली है।
(3) The term 'pattern' is part of their active vocabulary. / 'पैटर्न' शब्द उसकी सक्रिय शब्दावली का भाग है। ✔
(4) The student is guessing the term's meaning. / विद्यार्थी शब्द के अर्थ का अनुमान लगा रहा है।

Q.157 An external team reviews teaching, student records, teacher surveys, and student interviews to judge a school's performance. Which method of measuring school effectiveness is this?
एक बाह्य दल किसी विद्यालय के प्रदर्शन का आकलन करने के लिए शिक्षण, विद्यार्थी अभिलेखों, शिक्षक सर्वेक्षणों और विद्यार्थी साक्षात्कारों की समीक्षा करता है। यह विद्यालय प्रभावशीलता को मापने की कौन-सी विधि है?

(1) Measuring only the school's physical facilities / केवल विद्यालय की भौतिक सुविधाओं को मापना
(2) Relying solely on teacher attendance data / पूर्णतः शिक्षक उपस्थिति आँकड़ों पर निर्भर रहना
(3) Performance-based evaluation / प्रदर्शन-आधारित मूल्यांकन
(4) Multi-dimensional evaluation / बहुआयामी मूल्यांकन ✔

Q.158 How can a teacher apply both trial and error and classical conditioning to classroom learning?
एक शिक्षक कक्षा अधिगम में प्रयास और त्रुटि तथा प्राचीन (क्लासिकल) अनुबंधन, दोनों को किस प्रकार लागू कर सकता है?

(1) Correcting errors without explanation or feedback / बिना व्याख्या या प्रतिपुष्टि के त्रुटियों को सुधारना
(2) Using only repetition without hands-on practice / प्रत्यक्ष अभ्यास के बिना केवल पुनरावृत्ति का उपयोग करना
(3) Allowing students to try solutions with positive feedback / सकारात्मक प्रतिपुष्टि के साथ विद्यार्थियों को समाधान आज़माने देना ✔
(4) Focusing only on theory without student action / विद्यार्थी की क्रिया के बिना केवल सिद्धांत पर ध्यान केंद्रित करना

Q.159 Which teaching method best integrates the concept of measurement units with real-life examples in mathematics lessons?

गणित के पाठों में मापन इकाइयों की अवधारणा को वास्तविक जीवन के उदाहरणों के साथ सबसे अच्छी तरह कौन-सी शिक्षण विधि एकीकृत करती है?

(1) Relying on oral explanations without activities / गतिविधियों के बिना मौखिक व्याख्याओं पर निर्भर रहना

(2) Using only textbook exercises for measurement / मापन के लिए केवल पाठ्यपुस्तक के अभ्यासों का उपयोग करना

(3) Using hands-on activities with standard units / मानक इकाइयों के साथ प्रत्यक्ष (हैंड्स-ऑन) गतिविधियों का उपयोग करना ✔

(4) Focusing on memorization of measurement facts / मापन संबंधी तथ्यों को कंठस्थ करने पर ध्यान केंद्रित करना

Q.160 Which element is most important when conceiving a school from scratch?

शून्य से किसी विद्यालय की परिकल्पना करते समय कौन-सा तत्व सबसे महत्वपूर्ण है?

(1) Purchasing sports equipment / खेल उपकरण खरीदना

(2) Defining core philosophy and goals / मूल दर्शन और लक्ष्यों को परिभाषित करना ✔

(3) Deciding school uniform colors / विद्यालय की वर्दी के रंग तय करना

(4) Painting classrooms / कक्षाओं को रंगना

Q.161 A teacher uses peer conferences where students discuss each other's writing using checklists that focus on ideas and organization. Which key skill is primarily developed through this method?

एक शिक्षक सहपाठी सम्मेलनों (पीयर कॉन्फ्रेंस) का उपयोग करता है जिनमें विद्यार्थी विचारों और संगठन पर केंद्रित जाँच-सूचियों का उपयोग करते हुए एक-दूसरे के लेखन पर चर्चा करते हैं। इस विधि के माध्यम से मुख्य रूप से कौन-सा प्रमुख कौशल विकसित होता है?

(1) Silent reading fluency / मौन पठन प्रवाह

(2) Memorization of grammar rules / व्याकरण के नियमों को कंठस्थ करना

(3) Handwriting speed / लिखावट की गति

(4) Critical thinking and evaluation / आलोचनात्मक चिंतन और मूल्यांकन ✔

Q.162 What is the main focus of the Grammar Translation method?

व्याकरण-अनुवाद विधि का मुख्य केंद्र क्या है?

(1) Pronunciation / उच्चारण

(2) Phonetics / ध्वनिविज्ञान

(3) Vocabulary / शब्दावली

(4) Grammar rules / व्याकरण के नियम ✔

Q.163 You are assigned to design a plan to improve school effectiveness in a low-performing district. Which initial step is most appropriate based on measurement principles?

आपको एक निम्न-प्रदर्शन वाले जिले में विद्यालय प्रभावशीलता में सुधार के लिए एक योजना तैयार करने का कार्य सौंपा गया है। मापन के सिद्धांतों के आधार पर कौन-सा प्रारंभिक चरण सबसे उपयुक्त है?

(1) Requiring teachers to attend mandatory workshops monthly. / शिक्षकों के लिए मासिक रूप से अनिवार्य कार्यशालाओं में भाग लेना आवश्यक करना।

(2) Collecting and analyzing baseline data on current student outcomes. / विद्यार्थियों के वर्तमान परिणामों पर आधारभूत आँकड़े एकत्र करना और उनका विश्लेषण करना। ✔

(3) Reducing the number of school days to ease student workload. / विद्यार्थियों का कार्यभार कम करने के लिए विद्यालय दिवसों की संख्या घटाना।

(4) Implementing new technology in all classrooms immediately. / सभी कक्षाओं में तुरंत नई प्रौद्योगिकी लागू करना।

Q.164 A school is reviewing passages in science and social science textbooks. To promote effective language learning, what should teachers look for?

एक विद्यालय विज्ञान और सामाजिक विज्ञान की पाठ्यपुस्तकों के गद्यांशों की समीक्षा कर रहा है। प्रभावी भाषा अधिगम को बढ़ावा देने के लिए, शिक्षकों को किस बात पर ध्यान देना चाहिए?

(1) Whether only one register is used / क्या केवल एक ही प्रयुक्ति (रजिस्टर) का उपयोग किया गया है

(2) Whether all terms are highly technical / क्या सभी शब्द अत्यधिक तकनीकी हैं

(3) Whether language is learner-friendly / क्या भाषा शिक्षार्थी-अनुकूल है ✔

(4) Whether passages are the longest possible / क्या गद्यांश यथासंभव सबसे लंबे हैं

Q.165 A teacher wants to promote critical thinking using textbooks in an optional pedagogical course. Which approach most effectively uses the textbook's role in the teaching-learning process?

एक शिक्षक एक वैकल्पिक शिक्षाशास्त्रीय पाठ्यक्रम में पाठ्यपुस्तकों का उपयोग करके आलोचनात्मक चिंतन को बढ़ावा देना चाहता है। कौन-सा दृष्टिकोण शिक्षण-अधिगम प्रक्रिया में पाठ्यपुस्तक की भूमिका का सबसे प्रभावी उपयोग करता है?

(1) Discussing key definitions in context with examples / उदाहरणों सहित संदर्भ में प्रमुख परिभाषाओं पर चर्चा करना

(2) Summarizing chapters and debating main ideas / अध्यायों का सारांश बनाना और मुख्य विचारों पर वाद-विवाद करना

(3) Using case studies for analysis and reflection / विश्लेषण और चिंतन के लिए केस स्टडी (व्यक्ति अध्ययन) का उपयोग करना

(4) Applying exercises to solve real-world problems / वास्तविक जगत की समस्याओं को हल करने के लिए अभ्यासों को लागू करना ✔

Q.166 The primary pedagogical purpose of scaling down the class size (to 5–10 students) and lesson duration (to approximately 6 minutes) in the Microteaching technique is to achieve:

सूक्ष्म शिक्षण (माइक्रोटीचिंग) तकनीक में कक्षा के आकार (5–10 विद्यार्थियों तक) और पाठ की अवधि (लगभग 6 मिनट तक) को घटाने का प्राथमिक शिक्षाशास्त्रीय उद्देश्य क्या प्राप्त करना है?

(1) Detailed content coverage / विषयवस्तु का विस्तृत आच्छादन

(2) Administrative efficiency / प्रशासनिक दक्षता

(3) Simplification of complexity / जटिलता का सरलीकरण ✔

(4) Immediate data analysis / तत्काल आँकड़ा विश्लेषण

Q.167 A teacher wishes to model the water cycle for her class using minimal resources.
Which approach best demonstrates the use of low-cost materials as described in the context?

एक शिक्षिका न्यूनतम संसाधनों का उपयोग करके अपनी कक्षा के लिए जल चक्र का मॉडल बनाना चाहती है।
संदर्भ में वर्णित कम लागत वाली सामग्री के उपयोग को कौन-सा दृष्टिकोण सबसे अच्छी तरह प्रदर्शित करता है?

(1) Distributing printed diagrams of the water cycle for students to memorize / विद्यार्थियों को कंठस्थ करने के लिए जल चक्र के मुद्रित आरेख वितरित करना

(2) Using a plastic bottle and some water to create a simple water cycle model / एक साधारण जल चक्र मॉडल बनाने के लिए एक प्लास्टिक की बोतल और कुछ पानी का उपयोग करना ✔

(3) Renting an electronic water cycle simulator from a nearby science center / निकटवर्ती विज्ञान केंद्र से एक इलेक्ट्रॉनिक जल चक्र सिम्युलेटर किराए पर लेना

(4) Assigning students to write an essay about the water cycle without any demonstration / बिना किसी प्रदर्शन के विद्यार्थियों को जल चक्र पर निबंध लिखने का कार्य देना

Q.168 A teacher uses bottle caps and stones to teach counting. These materials are:

एक शिक्षक गिनती सिखाने के लिए बोतल के ढक्कनों और पत्थरों का उपयोग करता है। ये सामग्रियाँ हैं:

(1) Locally available concrete learning resources / स्थानीय रूप से उपलब्ध मूर्त अधिगम संसाधन ✔

(2) Improvised symbolic instructional representations / तात्कालिक रूप से निर्मित प्रतीकात्मक अनुदेशनात्मक निरूपण

(3) Abstract numerical reinforcement tools / अमूर्त संख्यात्मक पुनर्बलन उपकरण

(4) Standardized manipulative assessment devices / मानकीकृत हस्तचालित आकलन उपकरण

Q.169 The combined influence of Liberalization, Privatization, Globalization dilutes educational aims via what specific quality erosion process?

उदारीकरण, निजीकरण, वैश्वीकरण का संयुक्त प्रभाव किस विशिष्ट गुणवत्ता क्षरण प्रक्रिया के माध्यम से शैक्षिक उद्देश्यों को कमज़ोर करता है?

(1) Broadened access without commercialization risks / व्यावसायीकरण के जोखिमों के बिना व्यापक पहुँच

(2) Fragmentation compartmentalizing knowledge silos / ज्ञान को पृथक खंडों (साइलो) में विभाजित करने वाला विखंडन ✔

(3) Enhanced social ethos integration universally / सार्वभौमिक रूप से संवर्धित सामाजिक लोकाचार का एकीकरण

(4) Comprehensive unification of all learning domains / सभी अधिगम क्षेत्रों का व्यापक एकीकरण

Q.170 What does ICT stand for in English language teaching?

अंग्रेज़ी भाषा शिक्षण में ICT का पूर्ण रूप क्या है?

(1) Integrated Curriculum Theory

(2) Information and Communication Technology ✔

(3) Instructional Classroom Tool

(4) Interactive Communication Training

Q.171 The National Policy on Education (1986) highlights the need to nurture what societal value from an early age across all sections of society?

राष्ट्रीय शिक्षा नीति (1986) समाज के सभी वर्गों में प्रारंभिक आयु से ही किस सामाजिक मूल्य को पोषित करने की आवश्यकता पर प्रकाश डालती है?

(1) A sense of competition / प्रतिस्पर्धा की भावना

(2) A drive for economic growth / आर्थिक विकास की प्रेरणा

(3) A focus on technology / प्रौद्योगिकी पर ध्यान

(4) A consciousness of the environment / पर्यावरण के प्रति चेतना ✔

Q.172 A policymaker in India is evaluating the rise of private, for-profit colleges since 1991. She notices many such colleges offer quick employment-oriented courses but also charge high fees. Based on the LPG reforms' impact, which underlying challenge is most relevant for her to address to ensure equitable educational access?

भारत में एक नीति-निर्माता 1991 से निजी, लाभकारी महाविद्यालयों के उदय का मूल्यांकन कर रही है। वह देखती है कि ऐसे कई महाविद्यालय शीघ्र रोज़गार-उन्मुख पाठ्यक्रम प्रदान करते हैं, परंतु अधिक शुल्क भी लेते हैं। LPG सुधारों के प्रभाव के आधार पर, न्यायसंगत शैक्षिक पहुँच सुनिश्चित करने के लिए उसके द्वारा संबोधित की जाने वाली सबसे प्रासंगिक अंतर्निहित चुनौती कौन-सी है?

(1) Cultural homogenization from global curricula / वैश्विक पाठ्यचर्या से सांस्कृतिक समरूपीकरण

(2) Decline in research focus in institutions / संस्थानों में अनुसंधान पर ध्यान में गिरावट

(3) Increased fiscal deficit from public spending / सार्वजनिक व्यय से बढ़ा हुआ राजकोषीय घाटा

(4) Widening inequality due to costly fees / महँगे शुल्क के कारण बढ़ती असमानता ✔

Q.173 Students construct simple compost bins to observe the decomposition of plant material over time. Which curriculum concept and approach are primarily being utilized?

विद्यार्थी समय के साथ पादप सामग्री के अपघटन का अवलोकन करने के लिए साधारण कम्पोस्ट डिब्बे बनाते हैं। मुख्य रूप से किस पाठ्यचर्या अवधारणा और दृष्टिकोण का उपयोग किया जा रहा है?

(1) Plants; hands-on inquiry and observation / पौधे; प्रत्यक्ष (हैंड्स-ऑन) अन्वेषण और अवलोकन ✔

(2) Water; classification of sources / जल; स्रोतों का वर्गीकरण

(3) Shelter; mapping house designs / आश्रय; घरों की रूपरेखा का मानचित्रण

(4) Travel; predicting migration patterns / यात्रा; प्रवास प्रतिरूपों का पूर्वानुमान

Q.174 Which effect refers to students influencing the practices of the school leader without prior influence from the leader?

कौन-सा प्रभाव विद्यालय प्रमुख की ओर से पूर्व प्रभाव के बिना विद्यार्थियों द्वारा विद्यालय प्रमुख की कार्यप्रणालियों को प्रभावित करने को संदर्भित करता है?

(1) Mediated effect / मध्यस्थ प्रभाव

(2) Indirect effect / अप्रत्यक्ष प्रभाव

(3) Inverse effect / व्युत्क्रम प्रभाव ✔

(4) Direct effect / प्रत्यक्ष प्रभाव

Q.175 What is the primary purpose of lesson planning in pedagogy?

शिक्षाशास्त्र में पाठ योजना का प्राथमिक उद्देश्य क्या है?

(1) To create textbooks / पाठ्यपुस्तकें तैयार करना

(2) To organize teaching activities / शिक्षण गतिविधियों को व्यवस्थित करना ✔

(3) To supervise teachers / शिक्षकों का पर्यवेक्षण करना

(4) To assess students / विद्यार्थियों का आकलन करना

Q.176 Which of the following is a primary principle of lesson planning?

निम्नलिखित में से कौन-सा पाठ योजना का एक प्राथमिक सिद्धांत है?

(1) Ignoring student needs / विद्यार्थियों की आवश्यकताओं की उपेक्षा करना

(2) Focusing only on assessment / केवल आकलन पर ध्यान केंद्रित करना

(3) Clarity of objectives / उद्देश्यों की स्पष्टता ✔

(4) Random activity selection / यादृच्छिक गतिविधि चयन

Q.177 Which of the following best describes the goal of equality in social science education?

निम्नलिखित में से कौन-सा सामाजिक विज्ञान शिक्षा में समानता के लक्ष्य का सबसे अच्छा वर्णन करता है?

(1) Encouraging competition among students / विद्यार्थियों के बीच प्रतिस्पर्धा को प्रोत्साहित करना

(2) Focusing only on academic achievement / केवल शैक्षणिक उपलब्धि पर ध्यान केंद्रित करना

(3) Ensuring everyone has the same opportunities / यह सुनिश्चित करना कि सभी को समान अवसर प्राप्त हों ✔

(4) Giving special treatment to certain groups / कुछ समूहों के साथ विशेष व्यवहार करना

QuickSarkari.com | WhatsApp Channel | Telegram: t.me/quick_sarkari

Q.178 As a Director of Primary Education, managing a shift in school culture, which action aligns with the integration method of conflict resolution when addressing teacher resistance?

प्राथमिक शिक्षा निदेशक के रूप में, विद्यालय संस्कृति में बदलाव का प्रबंधन करते हुए, शिक्षकों के प्रतिरोध से निपटते समय कौन-सी कार्रवाई संघर्ष समाधान की एकीकरण विधि के अनुरूप है?

(1) Offer contingent rewards. / आकस्मिक (सशर्त) पुरस्कार प्रदान करना।

(2) Facilitate a circular response. / चक्रीय अनुक्रिया (सर्कुलर रिस्पॉन्स) को सुगम बनाना। ✔

(3) Impose bureaucratic rules. / नौकरशाही नियम थोपना।

(4) Seek a middle-ground compromise. / मध्यमार्गी समझौते की तलाश करना।

Q.179 How does education influence economic development in society?

शिक्षा समाज में आर्थिक विकास को किस प्रकार प्रभावित करती है?

(1) By eliminating the need for vocational and technical training / व्यावसायिक और तकनीकी प्रशिक्षण की आवश्यकता को समाप्त करके

(2) By developing skilled human resources and employability / कुशल मानव संसाधन और रोज़गार-योग्यता विकसित करके ✔

(3) By concentrating wealth and opportunities among elites / संपत्ति और अवसरों को अभिजात वर्ग के बीच केंद्रित करके

(4) By separating education from labour market demands / शिक्षा को श्रम बाज़ार की माँगों से अलग करके

Q.180 Which key criticism of the Grammar Translation Method highlights its effect on communicative competence in English learners?

व्याकरण-अनुवाद विधि की कौन-सी प्रमुख आलोचना अंग्रेज़ी शिक्षार्थियों की संप्रेषणात्मक सक्षमता पर इसके प्रभाव को उजागर करती है?

(1) It relies on repetitive written translations only. / यह केवल पुनरावृत्तिपूर्ण लिखित अनुवादों पर निर्भर करती है।

(2) It uses traditional literary texts for teaching. / यह शिक्षण के लिए पारंपरिक साहित्यिक पाठों का उपयोग करती है।

(3) It focuses mainly on grammatical accuracy tests. / यह मुख्य रूप से व्याकरणिक शुद्धता परीक्षणों पर केंद्रित है।

(4) It limits speaking and listening skills development. / यह बोलने और सुनने के कौशलों के विकास को सीमित करती है। ✔

Q.181 Imagine a classroom where science kits are not used. What is a likely consequence for students' learning?

एक ऐसी कक्षा की कल्पना कीजिए जहाँ विज्ञान किट का उपयोग नहीं किया जाता। विद्यार्थियों के अधिगम पर इसका संभावित परिणाम क्या होगा?

(1) Students will develop better scientific skills / विद्यार्थियों में बेहतर वैज्ञानिक कौशल विकसित होंगे

(2) Increased dependence on laboratory experiments / प्रयोगशाला प्रयोगों पर बढ़ी हुई निर्भरता

(3) Faster completion of the science syllabus / विज्ञान पाठ्यक्रम का शीघ्र पूर्ण होना

(4) Reduced hands-on understanding of scientific concepts / वैज्ञानिक अवधारणाओं की प्रत्यक्ष (हैंड्स-ऑन) समझ में कमी ✔

Q.182 The pedagogical shift in teaching Mathematics moves away from the traditional model focusing on:

गणित शिक्षण में शिक्षाशास्त्रीय बदलाव उस पारंपरिक मॉडल से दूर जा रहा है जो किस पर केंद्रित है?

(1) Inductive reasoning / आगमनात्मक तर्क

(2) Problem solving / समस्या समाधान

(3) Conceptual knowledge / संकल्पनात्मक ज्ञान

(4) Rote learning and drill / रटंत अधिगम और अभ्यास (ड्रिल) ✔

Q.183 A child demonstrates delayed speech development and struggles with social interactions. Which assessment tool is most suitable for identifying potential developmental disabilities in this case?

एक बच्चा विलंबित वाक् विकास प्रदर्शित करता है और सामाजिक अंतःक्रियाओं में कठिनाई का अनुभव करता है। इस स्थिति में संभावित विकासात्मक अक्षमताओं की पहचान के लिए कौन-सा आकलन उपकरण सबसे उपयुक्त है?

(1) Using a general intelligence test exclusively / केवल एक सामान्य बुद्धि परीक्षण का उपयोग करना

(2) Conducting a physical fitness evaluation alone / केवल शारीरिक फ़िटनेस मूल्यांकन करना

(3) **Administering a standardized developmental screening checklist / एक मानकीकृत विकासात्मक स्क्रीनिंग जाँच-सूची प्रशासित करना ✔**

(4) Evaluating specific subject performance only / केवल विशिष्ट विषय के प्रदर्शन का मूल्यांकन करना

Q.184 Which method replaces IQ-achievement gap criteria by assessing learner difficulty based on instructional failure?

कौन-सी विधि अनुदेशनात्मक विफलता के आधार पर शिक्षार्थी की कठिनाई का आकलन करके IQ-उपलब्धि अंतराल मानदंड को प्रतिस्थापित करती है?

(1) Curricular assessment / पाठ्यचर्या आधारित आकलन

(2) Syndrome analysis / संलक्षण (सिंड्रोम) विश्लेषण

(3) **Response to intervention / हस्तक्षेप के प्रति अनुक्रिया ✔**

(4) Minimal brain damage / न्यूनतम मस्तिष्क क्षति

Q.185 Which of the following is not an importance of reading skills?

निम्नलिखित में से कौन-सा पठन कौशल का महत्व नहीं है?

(1) Encouraging analytical and reflective thinking processes / विश्लेषणात्मक और चिंतनशील विचार प्रक्रियाओं को प्रोत्साहित करना

(2) **Reducing the ability to access knowledge and information / ज्ञान और सूचना तक पहुँचने की क्षमता को कम करना ✔**

(3) Facilitating the interpretation of written materials effectively / लिखित सामग्री की प्रभावी व्याख्या को सुगम बनाना

(4) Helping learners engage with a variety of texts meaningfully / शिक्षार्थियों को विभिन्न प्रकार के पाठों से सार्थक रूप से जुड़ने में सहायता करना

Q.186 A school aims to revise its policies to support transgender and non-binary students. Which policy change would most effectively foster an inclusive environment?

एक विद्यालय ट्रांसजेंडर और नॉन-बाइनरी विद्यार्थियों को समर्थन देने के लिए अपनी नीतियों को संशोधित करने का लक्ष्य रखता है। कौन-सा नीतिगत परिवर्तन समावेशी वातावरण को सबसे प्रभावी ढंग से बढ़ावा देगा?

(1) Provide separately designed restrooms and uniforms for transgender students only / केवल ट्रांसजेंडर विद्यार्थियों के लिए अलग से बनाए गए शौचालय और वर्दियाँ प्रदान करना

(2) Providing counseling while retaining existing uniform and restroom restrictions / मौजूदा वर्दी और शौचालय प्रतिबंधों को बनाए रखते हुए परामर्श प्रदान करना

(3) **Allowing students to choose uniforms and restroom as per their gender identity / विद्यार्थियों को उनकी लैंगिक पहचान के अनुसार वर्दी और शौचालय चुनने की अनुमति देना ✔**

(4) Mandating parental approval for any student-initiated identity-related adjustments / विद्यार्थी द्वारा आरंभ किए गए किसी भी पहचान-संबंधी समायोजन के लिए अभिभावक की स्वीकृति अनिवार्य करना

Q.187 A school in India refuses to admit children from a particular minority community. What form of exclusion is this?

भारत का एक विद्यालय किसी विशेष अल्पसंख्यक समुदाय के बच्चों को प्रवेश देने से इनकार करता है। यह किस प्रकार का बहिष्करण है?

(1) Economic exclusion / आर्थिक बहिष्करण

(2) Physical exclusion / भौतिक बहिष्करण

(3) Academic exclusion / शैक्षणिक बहिष्करण

(4) Social exclusion / सामाजिक बहिष्करण ✔

Q.188 A teacher encourages students to ask questions about why it rains more in some seasons. What does this teaching strategy highlight?

एक शिक्षक विद्यार्थियों को इस बारे में प्रश्न पूछने के लिए प्रोत्साहित करता है कि कुछ ऋतुओं में अधिक वर्षा क्यों होती है। यह शिक्षण रणनीति किस बात पर प्रकाश डालती है?

(1) Science as unchanging facts / विज्ञान अपरिवर्तनीय तथ्यों के रूप में

(2) Science as guessing answers / विज्ञान उत्तरों का अनुमान लगाने के रूप में

(3) Science as inquiry driven knowledge / विज्ञान अन्वेषण-आधारित ज्ञान के रूप में ✔

(4) Science as only memorizing textbooks / विज्ञान केवल पाठ्यपुस्तकों को रटने के रूप में

Q.189 A teacher evaluates students through oral discussion, written tasks, and observation notes. This represents:

एक शिक्षक मौखिक चर्चा, लिखित कार्यों और अवलोकन टिप्पणियों के माध्यम से विद्यार्थियों का मूल्यांकन करता है। यह किसका प्रतिनिधित्व करता है?

(1) A non-evaluative classroom / एक मूल्यांकन-रहित कक्षा

(2) A test-only approach / केवल परीक्षण वाला दृष्टिकोण

(3) Multiple assessment techniques / अनेक आकलन तकनीकें ✔

(4) A single-format assessment / एकल-प्रारूप आकलन

Q.190 Recreational mathematics supports joyful learning because it:

मनोरंजक गणित आनंदपूर्ण अधिगम का समर्थन करता है क्योंकि यह:

(1) Limits learner creativity and imagination / शिक्षार्थी की रचनात्मकता और कल्पनाशीलता को सीमित करता है

(2) Increases dependence on rote memorisation methods / रटने की विधियों पर निर्भरता बढ़ाता है

(3) Promotes rigid adherence to formal algorithms / औपचारिक कलन-विधियों (एल्गोरिद्म) के कठोर पालन को बढ़ावा देता है

(4) Reduces fear and anxiety associated with mathematics / गणित से जुड़े भय और चिंता को कम करता है ✔

Q.191 If a school wants to improve its English program by systematically collecting information, making inferences, and deciding on modifications, which process is being followed?

यदि कोई विद्यालय व्यवस्थित रूप से सूचना एकत्र करके, निष्कर्ष निकालकर और संशोधनों पर निर्णय लेकर अपने अंग्रेज़ी कार्यक्रम में सुधार करना चाहता है, तो किस प्रक्रिया का अनुसरण किया जा रहा है?

(1) Program evaluation / कार्यक्रम मूल्यांकन ✔

(2) Student assessment / विद्यार्थी आकलन

(3) Teacher recruitment / शिक्षक भर्ती

(4) Lesson planning / पाठ योजना

Q.192 Disability identification in education primarily refers to the process of:

शिक्षा में अक्षमता की पहचान मुख्य रूप से किस प्रक्रिया को संदर्भित करती है?

(1) Separating learners into special schools / शिक्षार्थियों को विशेष विद्यालयों में अलग करना

(2) Determining intelligence through single tests / एकल परीक्षणों के माध्यम से बुद्धि का निर्धारण करना

(3) **Recognising functional difficulties affecting learning / अधिगम को प्रभावित करने वाली कार्यात्मक कठिनाइयों को पहचानना ✔**

(4) Labeling learners based only on medical diagnoses / केवल चिकित्सीय निदान के आधार पर शिक्षार्थियों को नामांकित (लेबल) करना

Q.193 Inclusive education views diversity among learners mainly as a:

समावेशी शिक्षा शिक्षार्थियों के बीच विविधता को मुख्य रूप से किस रूप में देखती है?

(1) Classroom difficulty / कक्षा की कठिनाई

(2) Curriculum limitation / पाठ्यचर्या की सीमा

(3) **Learning opportunity / अधिगम का अवसर ✔**

(4) Administrative burden / प्रशासनिक बोझ

Q.194 Suppose you are designing a mathematics curriculum for graduate students focusing on numbers. Which approach best fosters deep understanding of the hierarchy and relationships among natural, integer, rational, real, and complex numbers?

मान लीजिए कि आप संख्याओं पर केंद्रित स्नातक विद्यार्थियों के लिए गणित पाठ्यचर्या तैयार कर रहे हैं। कौन-सा दृष्टिकोण प्राकृत, पूर्णांक, परिमेय, वास्तविक और सम्मिश्र संख्याओं के बीच पदानुक्रम और संबंधों की गहन समझ को सबसे अच्छी तरह बढ़ावा देता है?

(1) Exploring historical context of numbers / संख्याओं के ऐतिहासिक संदर्भ का अन्वेषण करना

(2) Solving real-life number set problems / वास्तविक जीवन की संख्या समुच्चय संबंधी समस्याओं को हल करना

(3) Analyzing examples and counterexamples / उदाहरणों और प्रति-उदाहरणों का विश्लेषण करना

(4) **Practicing patterns and relationships / प्रतिरूपों और संबंधों का अभ्यास करना ✔**

Q.195 Which objective of an Eco-Club relates most directly to developing positive attitudes and ethics toward the environment?

इको-क्लब का कौन-सा उद्देश्य पर्यावरण के प्रति सकारात्मक दृष्टिकोण और नैतिकता विकसित करने से सबसे प्रत्यक्ष रूप से संबंधित है?

(1) Improving mathematical skills through environmental statistics / पर्यावरणीय सांख्यिकी के माध्यम से गणितीय कौशल में सुधार करना

(2) **Creating awareness and sensitivity about various environmental issues / विभिन्न पर्यावरणीय मुद्दों के बारे में जागरूकता और संवेदनशीलता उत्पन्न करना ✔**

(3) Learning foreign languages to communicate global issues / वैश्विक मुद्दों पर संवाद करने के लिए विदेशी भाषाएँ सीखना

(4) Practicing debating techniques on current events / समसामयिक घटनाओं पर वाद-विवाद तकनीकों का अभ्यास करना

Q.196 Which set of teaching aids would be most effective for a language lesson on storytelling in a diverse classroom?

विविधतापूर्ण कक्षा में कहानी कहने पर आधारित भाषा पाठ के लिए शिक्षण सहायक सामग्री का कौन-सा समुच्चय सबसे प्रभावी होगा?

(1) Geographical maps, compasses, and weather journals / भौगोलिक मानचित्र, दिक्सूचक और मौसम पत्रिकाएँ

(2) Mathematical charts, number blocks, and measuring tapes / गणितीय चार्ट, संख्या ब्लॉक और मापने वाले फीते

(3) Scientific apparatus, lab coats, and periodic tables / वैज्ञानिक उपकरण, प्रयोगशाला कोट और आवर्त सारणियाँ

(4) **Audio recordings, picture cards, and role-play props / ऑडियो रिकॉर्डिंग, चित्र कार्ड और भूमिका-निर्वाह सामग्री ✔**

Q.197 During a professional development workshop, educators are debating the statement: 'Scientific concepts are absolute and unchanging.' As a science education specialist, which argument would you use to clarify the nature of scientific concepts?

एक व्यावसायिक विकास कार्यशाला के दौरान, शिक्षाविद् इस कथन पर वाद-विवाद कर रहे हैं: 'वैज्ञानिक अवधारणाएँ निरपेक्ष और अपरिवर्तनीय होती हैं।' एक विज्ञान शिक्षा विशेषज्ञ के रूप में, वैज्ञानिक अवधारणाओं की प्रकृति को स्पष्ट करने के लिए आप किस तर्क का उपयोग करेंगे?

(1) Scientific concepts are created to fit existing technology / वैज्ञानिक अवधारणाएँ मौजूदा प्रौद्योगिकी के अनुरूप बनाई जाती हैं

(2) Scientific concepts are personal beliefs of scientists / वैज्ञानिक अवधारणाएँ वैज्ञानिकों की व्यक्तिगत मान्यताएँ होती हैं

(3) Scientific concepts are universally agreed and static / वैज्ञानिक अवधारणाएँ सार्वभौमिक रूप से स्वीकृत और स्थिर होती हैं

(4) Scientific concepts evolve with new evidence and reinterpretation / वैज्ञानिक अवधारणाएँ नए साक्ष्यों और पुनर्व्याख्या के साथ विकसित होती हैं ✓

Q.198 Which term describes numbers that can be written as fractions?

कौन-सा पद उन संख्याओं का वर्णन करता है जिन्हें भिन्नों के रूप में लिखा जा सकता है?

(1) Natural numbers / प्राकृत संख्याएँ

(2) Whole numbers / पूर्ण संख्याएँ

(3) Rational numbers / परिमेय संख्याएँ ✓

(4) Irrational numbers / अपरिमेय संख्याएँ

Q.199 Which learning disability affects a person's ability to understand numbers and learn math facts?

कौन-सी अधिगम अक्षमता किसी व्यक्ति की संख्याओं को समझने और गणितीय तथ्यों को सीखने की क्षमता को प्रभावित करती है?

(1) Dyscalculia / डिस्कैलकुलिया ✓

(2) Dyspraxia / डिस्प्रैक्सिया

(3) Dysgraphia / डिस्ग्राफ़िया

(4) Dyslexia / डिस्लेक्सिया

Q.200 Which of the following is an example of inclusion in Indian schools?

निम्नलिखित में से कौन-सा भारतीय विद्यालयों में समावेशन का एक उदाहरण है?

(1) Providing separate classrooms only for high-performing students / केवल उच्च प्रदर्शन करने वाले विद्यार्थियों के लिए अलग कक्षाएँ प्रदान करना

(2) Allowing children from marginalized communities into regular classes / वंचित समुदायों के बच्चों को नियमित कक्षाओं में प्रवेश देना ✓

(3) Limiting participation of children with disabilities in activities / गतिविधियों में दिव्यांग बच्चों की भागीदारी को सीमित करना

(4) Teaching only mainstream cultural content through textbooks / पाठ्यपुस्तकों के माध्यम से केवल मुख्यधारा की सांस्कृतिक विषयवस्तु पढ़ाना

Answer Key / उत्तर कुंजी

1	**2**	**3**	**4**	**5**	**6**	**7**	**8**	**9**	**10**	**11**	**12**	**13**	**14**	**15**
4	3	4	3	4	4	3	2	4	1	4	3	1	1	1
16	**17**	**18**	**19**	**20**	**21**	**22**	**23**	**24**	**25**	**26**	**27**	**28**	**29**	**30**
4	2	3	1	2	3	2	2	1	2	2	1	3	4	3
31	**32**	**33**	**34**	**35**	**36**	**37**	**38**	**39**	**40**	**41**	**42**	**43**	**44**	**45**
1	3	4	1	1	2	2	1	1	4	3	2	1	1	2

46 1	**47** 2	**48** 1	**49** 2	**50** 4	**51** 2	**52** 1	**53** 1	**54** 1	**55** 3	**56** 1	**57** 2	**58** 4	**59** 2	**60** 1
61 2	**62** 3	**63** 2	**64** 1	**65** 4	**66** 2	**67** 2	**68** 3	**69** 1	**70** 3	**71** 2	**72** 3	**73** 1	**74** 4	**75** 1
76 3	**77** 4	**78** 2	**79** 4	**80** 4	**81** 2	**82** 3	**83** 3	**84** 1	**85** 3	**86** 1	**87** 2	**88** 2	**89** 4	**90** 4
91 3	**92** 4	**93** 3	**94** 2	**95** 1	**96** 3	**97** 3	**98** 3	**99** 4	**100** 1	**101** 3	**102** 1	**103** 1	**104** 3	**105** 2
106 3	**107** 1	**108** 2	**109** 3	**110** 1	**111** 2	**112** 2	**113** 3	**114** 4	**115** 1	**116** 1	**117** 2	**118** 1	**119** 4	**120** 2
121 3	**122** 4	**123** 1	**124** 3	**125** 4	**126** 4	**127** 1	**128** 3	**129** 2	**130** 4	**131** 1	**132** 2	**133** 4	**134** 1	**135** 2
136 4	**137** 4	**138** 3	**139** 1	**140** 2	**141** 3	**142** 3	**143** 1	**144** 1	**145** 1	**146** 2	**147** 2	**148** 4	**149** 2	**150** 3
151 2	**152** 2	**153** 1	**154** 2	**155** 3	**156** 3	**157** 4	**158** 3	**159** 3	**160** 2	**161** 4	**162** 4	**163** 2	**164** 3	**165** 4
166 3	**167** 2	**168** 1	**169** 2	**170** 2	**171** 4	**172** 4	**173** 1	**174** 3	**175** 2	**176** 3	**177** 3	**178** 2	**179** 2	**180** 4
181 4	**182** 4	**183** 3	**184** 3	**185** 2	**186** 3	**187** 4	**188** 3	**189** 3	**190** 4	**191** 1	**192** 3	**193** 3	**194** 4	**195** 2
196 4	**197** 4	**198** 3	**199** 1	**200** 2										

Quick Sarkari

GOVT. OF NCT OF DELHI
Delhi Subordinate Services Selection Board
FC-18, Institutional Area, Karkardooma, Delhi – 110092.
www.dsssb.delhigovt.nic.in

Participant ID	[redacted]
Participant Name	[redacted]
Test Center Name	[redacted]
Test Date	19/02/2026
Test Time	1:00 PM - 3:00 PM
Subject	Assistant Teacher Primary

Section : **General Intelligence and Reasoning Ability**

Q.1 **In a certain code language, 'FISH' is coded as '5892' and 'SHIP' is coded as '7589'. What is the code for 'P' in that language?**

Ans
✗ 1. 8
✗ 2. 2
✗ 3. 9
✓ 4. 7

Question ID : **4410091619037**
Option 1 ID : **4410096395022**
Option 2 ID : **4410096395021**
Option 3 ID : **4410096395023**
Option 4 ID : **4410096395020**

Q.2 **Refer to the following letter, symbol series and answer the question. Counting to be done from left to right only.**
(Left) & € # Y J £ M & N K V £ N % % & # Z P * J I (Right)
How many such symbols are there each of which is immediately preceded by a letter and also immediately followed by a symbol?9673

Ans
✗ 1. 2
✗ 2. 0
✓ 3. 1
✗ 4. 3

Question ID : **441009795657**
Option 1 ID : **4410093136628**
Option 2 ID : **4410093136629**
Option 3 ID : **4410093136627**
Option 4 ID : **4410093136630**

QuickSarkari.com | WhatsApp Channel | Telegram: t.me/quick_sarkari

Q.3 Seven people, B, U, C, K, E, T and S, are sitting around a circular table facing the centre of the table. Only one person sits between U and B when counted from the left of B. T sits third to the right of K. S sits third to the left of E. T sits to the immediate right of S. C is not an immediate neighbor of S. How many people sit between C and B when counted from the right of C?

Ans
- ✗ 1. Two
- ✗ 2. Four
- ✗ 3. One
- ✓ 4. Three

Question ID : **4410091518794**
Option 1 ID : **4410095998455**
Option 2 ID : **4410095998457**
Option 3 ID : **4410095998454**
Option 4 ID : **4410095998456**

Q.4 What should come in place of '?' in the given series?

120 136 104 152 88 ?

Ans
- ✗ 1. 152
- ✗ 2. 160
- ✓ 3. 168
- ✗ 4. 164

Question ID : **4410091528112**
Option 1 ID : **4410096035641**
Option 2 ID : **4410096035642**
Option 3 ID : **4410096035644**
Option 4 ID : **4410096035643**

Q.5 Refer to the following letter series and answer the question that follows. Counting to be done from left to right only.

(Left) K L S U G Q X M X O G W S H Y L X T H A A (Right)

How many such consonants are there, each of which is immediately preceded by a vowel and also immediately followed by a vowel?6868

Ans
- ✗ 1. Three
- ✗ 2. Two
- ✗ 3. One
- ✓ 4. None

Question ID : **441009780787**
Option 1 ID : **4410093077154**
Option 2 ID : **4410093077153**
Option 3 ID : **4410093077152**
Option 4 ID : **4410093077151**

QuickSarkari

Q.6 Based on the English alphabetical order, three of the following four letter cluster pairs are alike in a certain way and thus form a group. Which is the one that does not belong to that group?
(Note: The odd one out is not based on the number of consonants/vowels or their position in the letter cluster)4370

Ans
✗ 1. FH - JL
✗ 2. QS - UW
✗ 3. HJ - LN
✓ 4. XB - YE

Question ID : **441009790474**
Option 1 ID : **4410093115896**
Option 2 ID : **4410093115898**
Option 3 ID : **4410093115895**
Option 4 ID : **4410093115897**

Q.7 What should come in place of ? in the given series based on the English alphabetical order?

XDYP EKFW LRMD SYTK ?

Ans
✗ 1. AFRE
✗ 2. ZARF
✓ 3. ZFAR
✗ 4. ZSWE

Question ID : **4410091614436**
Option 1 ID : **4410096376563**
Option 2 ID : **4410096376562**
Option 3 ID : **4410096376561**
Option 4 ID : **4410096376564**

Q.8 What will come in the place of '?' in the following equation, if '+' and '-' are interchanged
and 'x' and '÷' are interchanged?
625 - 452 ÷ 378 x 126 + 295 ÷ 948 x 237 =?4226

Ans
✗ 1. 108
✓ 2. 801
✗ 3. 180
✗ 4. 810

Question ID : **441009554691**
Option 1 ID : **4410092174078**
Option 2 ID : **4410092174081**
Option 3 ID : **4410092174080**
Option 4 ID : **4410092174079**

QuickSarkari

Q.9 Select the pair that follows the same pattern as that followed by the two pairs given below. Both pairs follow the same pattern.
WVZ–YXB
RQU–TSW13907

Ans
✗ 1. LJM–NMQ
✗ 2. LKO–MMP
✗ 3. LJM–MLP
✓ 4. LKO–NMQ

Question ID : **441009767999**
Option 1 ID : **4410093025991**
Option 2 ID : **4410093025990**
Option 3 ID : **4410093025992**
Option 4 ID : **4410093025989**

Q.10 Sudhir ranked 14th from the bottom and 19th from the top in his class. How many students are there in his class?

Ans
✓ 1. 32
✗ 2. 31
✗ 3. 33
✗ 4. 30

Question ID : **4410091614417**
Option 1 ID : **4410096376487**
Option 2 ID : **4410096376486**
Option 3 ID : **4410096376488**
Option 4 ID : **4410096376485**

Q.11 Each of E, F, G, H, Q, R and S has an exam on a different day of a week starting from Monday and ending on Sunday of the same week. E has exam on Thursday and Q has exam on Saturday. R has exam immediately before H. S has exam on one of the days after G. F has exam immediately after H. How many people have exam between S and F?

Ans
✗ 1. Two
✗ 2. Four
✗ 3. One
✓ 4. Three

Question ID : **4410091618860**
Option 1 ID : **4410096394313**
Option 2 ID : **4410096394315**
Option 3 ID : **4410096394312**
Option 4 ID : **4410096394314**

QuickSarkari.com | WhatsApp Channel | Telegram: t.me/quick_sarkari

Q.12 Each vowel in the word JUMBLED is changed to the letter immediately following it in the English alphabetical order and each consonant is changed to the letter immediately preceding it in the English alphabetical order. How many vowels are there in the group of letters thus formed?

Ans
✗ 1. 0
✗ 2. 1
✓ 3. 2
✗ 4. 3

Question ID : **441009216511**
Option 1 ID : **441009850083**
Option 2 ID : **441009850084**
Option 3 ID : **441009850085**
Option 4 ID : **441009850086**

Q.13 Each of P, Q, R, S, T, U and V has an exam on a different day of a week starting from Monday and ending on Sunday of the same week.
Q has an exam on Tuesday. Only one person has exam between U and V. U has exam on the day immediately before T but not on a Wednesday. Only two people have exams between V and T. V's exam is on one of the days after R but on one of the days before S. Q has exam on the day immediately after P.
How many people have exams before V?

Ans
✓ 1. Three
✗ 2. One
✗ 3. None
✗ 4. Two

Question ID : **4410091422313**
Option 1 ID : **4410095618161**
Option 2 ID : **4410095618159**
Option 3 ID : **4410095618158**
Option 4 ID : **4410095618160**

QuickSarkari.com | WhatsApp Channel | Telegram: t.me/quick_sarkari

Q.14 Select the correct mirror image of the given figure when the mirror is placed at MN as shown below.



Ans

✔ 1. 

✘ 2. 

✘ 3. 

✘ 4. 

Question ID : **4410091524710**
Option 1 ID : **4410096022047**
Option 2 ID : **4410096022048**
Option 3 ID : **4410096022049**
Option 4 ID : **4410096022050**

QuickSarkari.com | WhatsApp Channel | Telegram: t.me/quick_sarkari

Q.15 Below are given two sets of numbers. In each set of numbers, a certain mathematical operation on the first number results in the second number. Similarly, certain mathematical operation on the second number results in the third number and so on. Which of the given options follows the same set of operations as in the question?
(NOTE – A two/three-digit number cannot be broken into individual digits for operations e.g. if 37 is followed by 10, the operation cannot be 3+7 as a two-digit number cannot be broken into individual digits)
48 - 53 - 54 - 216
6 - 11 - 12 - 48

Ans
✔ 1. 12 - 17 - 18 - 72
✘ 2. 15 - 21 - 17 - 68
✘ 3. 35 - 40 - 38 - 152
✘ 4. 49 - 53 - 51 - 255

Question ID : **441009528750**
Option 1 ID : **4410092070404**
Option 2 ID : **4410092070405**
Option 3 ID : **4410092070407**
Option 4 ID : **4410092070406**

Q.16 G is the mother of L. L is the sister of U. T is the father of N. N is the son of U. How is N related to G?

Ans
✘ 1. Father
✘ 2. Daughter's husband
✘ 3. Son
✔ 4. Daughter's son

Question ID : **4410091619016**
Option 1 ID : **4410096394938**
Option 2 ID : **4410096394937**
Option 3 ID : **4410096394939**
Option 4 ID : **4410096394936**

Q.17 Based on the English alphabetical order, three of the following four are alike in a certain way and thus form a group. Which is the one that does not belong to that group?
(Note: The odd man out is not based on the number of consonants/vowels or their position in the letter cluster)2843

Ans
✘ 1. RQT
✔ 2. OMH
✘ 3. LKN
✘ 4. WVY

Question ID : **441009776845**
Option 1 ID : **4410093061385**
Option 2 ID : **4410093061384**
Option 3 ID : **4410093061386**
Option 4 ID : **4410093061383**

Q.18 What will come in the place of '?' in the following equation if '+' and '-' are interchanged and 'x' and '÷' are interchanged?
9 ÷ 3 - 20 x 5 + 7 = ?

Ans
✗ 1. 20
✗ 2. 28
✓ 3. 24
✗ 4. 25

Question ID : **4410091609185**
Option 1 ID : **4410096355656**
Option 2 ID : **4410096355659**
Option 3 ID : **4410096355657**
Option 4 ID : **4410096355658**

Q.19 The position(s) of how many letters will remain unchanged if each letter in the word VICTORY is arranged in the English alphabetical order?9813

Ans
✓ 1. Two
✗ 2. Zero
✗ 3. One
✗ 4. Three

Question ID : **441009763968**
Option 1 ID : **4410093009867**
Option 2 ID : **4410093009865**
Option 3 ID : **4410093009866**
Option 4 ID : **4410093009868**

QuickSarkari

Q.20 Select the correct mirror image of the given figure when the mirror is placed at MN as shown below.

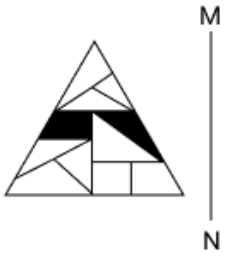

Ans

✗ 1.



✓ 2.



✗ 3.



✗ 4.



Question ID : **441009864846**
Option 1 ID : **4410093412485**
Option 2 ID : **4410093412484**
Option 3 ID : **4410093412487**
Option 4 ID : **4410093412486**

Section : **General Awareness**

QuickSarkari.com | WhatsApp Channel | Telegram: t.me/quick_sarkari

Q.1 Which of the following was a major goal of India's 1991 Trade and Investment Policy Reforms?

Ans
✗ 1. Promote local handicrafts
✗ 2. Increase population growth
✓ 3. Enhance international competitiveness and attract foreign investments
✗ 4. Eliminate all taxes

Question ID : **441009226535**
Option 1 ID : **441009886978**
Option 2 ID : **441009886977**
Option 3 ID : **441009886979**
Option 4 ID : **441009886980**

Q.2 Which of the following states has the largest wind farm cluster in India?

Ans
✗ 1. Gujarat
✓ 2. Tamil Nadu
✗ 3. Maharashtra
✗ 4. Kerala

Question ID : **441009210067**
Option 1 ID : **441009825360**
Option 2 ID : **441009825359**
Option 3 ID : **441009825362**
Option 4 ID : **441009825361**

Q.3 Which of the following belts in India is rich in copper and zinc minerals that are associated mainly with the Dharwar system of rocks?

Ans
✗ 1. Himalayan Belt
✓ 2. North-Western Region (Aravali Range)
✗ 3. South-Western Plateau Region (Sahyadri Range)
✗ 4. North-Eastern Plateau Region

Question ID : **441009207623**
Option 1 ID : **441009816464**
Option 2 ID : **441009816465**
Option 3 ID : **441009816463**
Option 4 ID : **441009816462**

Q.4 What was the official theme chosen by South Africa for hosting the G20 Summit in 2025?

Ans
✓ 1. Solidarity, Equality, Sustainability
✗ 2. One Earth, One Future
✗ 3. Reform, Rebuild, Restore
✗ 4. Humanity First

Question ID : **4410091556440**
Option 1 ID : **4410096148332**
Option 2 ID : **4410096148330**
Option 3 ID : **4410096148333**
Option 4 ID : **4410096148331**

QuickSarkari.com | WhatsApp Channel | Telegram: t.me/quick_sarkari

Q.5 What is the key component inside a decibel meter that helps detect sound pressure?

Ans
✗ 1. Magnetic coil
✓ 2. Microphone
✗ 3. LED sensor
✗ 4. Optical fiber

Question ID : **441009513699**
Option 1 ID : **4410092009964**
Option 2 ID : **4410092009965**
Option 3 ID : **4410092009966**
Option 4 ID : **4410092009967**

Q.6 In 2025, Gokul Chandra Das was awarded the Padma Shri in the field of Art. Which of the following statements is correct?

Ans
✗ 1. He is a renowned sitar player from Maharashtra.
✓ 2. He is a celebrated dhak player from West Bengal.
✗ 3. He is a contemporary painter from Delhi.
✗ 4. He is a classical vocalist from Tamil Nadu.

Question ID : **441009312277**
Option 1 ID : **4410091215582**
Option 2 ID : **4410091215584**
Option 3 ID : **4410091215585**
Option 4 ID : **4410091215583**

Q.7 Which of the following statements is **CORRECT** regarding the term of office of a Governor in India?

Ans
✓ 1. The Governor holds office during the pleasure of the President and may resign by writing to the President.
✗ 2. The Legislative Assembly of the State elects the Governor.
✗ 3. The Governor cannot resign once appointed until the five-year term is complete.
✗ 4. The governor can be removed only through impeachment in Parliament on the recommendation of the Chief Justice of India.

Question ID : **441009672147**
Option 1 ID : **4410092642683**
Option 2 ID : **4410092642685**
Option 3 ID : **4410092642684**
Option 4 ID : **4410092642682**

QuickSarkari.com | WhatsApp Channel | Telegram: t.me/quick_sarkari

Q.8 **Which tribal community dominated the Bastar region during the British indirect rule?**

Ans
- ✗ 1. Juang
- ✗ 2. Santhal
- ✓ 3. Gond
- ✗ 4. Bhil

Question ID : **441009875975**
Option 1 ID : **4410093457518**
Option 2 ID : **4410093457517**
Option 3 ID : **4410093457520**
Option 4 ID : **4410093457519**

Q.9 **The Bharatmala Project is related to the development of which type of infrastructure?**

Ans
- ✗ 1. Airports
- ✗ 2. Smart Cities
- ✗ 3. Railways
- ✓ 4. Highways

Question ID : **44100943734**
Option 1 ID : **441009174385**
Option 2 ID : **441009174386**
Option 3 ID : **441009174383**
Option 4 ID : **441009174384**

Q.10 **In February 2025, which country withdrew from China's Belt and Road Initiative (BRI) by deciding not to renew the 2017 Memorandum of Understanding with China?**

Ans
- ✗ 1. Philippines
- ✗ 2. Indonesia
- ✓ 3. Panama
- ✗ 4. Vietnam

Question ID : **441009207062**
Option 1 ID : **441009814191**
Option 2 ID : **441009814192**
Option 3 ID : **441009814193**
Option 4 ID : **441009814194**

QuickSarkari.com | WhatsApp Channel | Telegram: t.me/quick_sarkari

Q.11 During the 1857 Battle of Chinhat, the British contingent suffered a loss under the command of which of the following officials?

Ans
✔ 1. Henry Lawrence
✘ 2. John Nicholson
✘ 3. William Hodson
✘ 4. James Outram

Question ID : **4410091551145**
Option 1 ID : **4410096126828**
Option 2 ID : **4410096126829**
Option 3 ID : **4410096126827**
Option 4 ID : **4410096126830**

Q.12 Which classical dancer is credited with reviving Bharatanatyam and founding the Kalakshetra Foundation?

Ans
✘ 1. Shovana Narayan
✘ 2. Alarmel Valli
✔ 3. Rukmini Devi Arundale
✘ 4. Mrinalini Sarabhai

Question ID : **441009753519**
Option 1 ID : **4410092968085**
Option 2 ID : **4410092968088**
Option 3 ID : **4410092968086**
Option 4 ID : **4410092968087**

Q.13 In scientific research, which system of units is primarily used?

Ans
✘ 1. US standard system
✘ 2. CGS system
✘ 3. Customary system
✔ 4. SI system

Question ID : **441009513713**
Option 1 ID : **4410092010031**
Option 2 ID : **4410092010028**
Option 3 ID : **4410092010029**
Option 4 ID : **4410092010030**

QuickSarkari.com | WhatsApp Channel | Telegram: t.me/quick_sarkari

Q.14 Following the First Round Table Conference when Congress appointed a negotiator to hold direct talks with Lord Irwin, the British Viceroy of India, which of the following leaders was chosen for this role?

Ans
- ✔ 1. Mahatma Gandhi
- ✘ 2. Subhas Chandra Bose
- ✘ 3. Sardar Patel
- ✘ 4. Jawaharlal Nehru

Question ID : **4410091551242**
Option 1 ID : **4410096127259**
Option 2 ID : **4410096127261**
Option 3 ID : **4410096127260**
Option 4 ID : **4410096127262**

Q.15 Pattachitra paintings are traditionally associated with which deity and region?

Ans
- ✔ 1. Lord Jagannath, Odisha
- ✘ 2. Lord Shiva, Tamil Nadu
- ✘ 3. Lord Krishna, Uttar Pradesh
- ✘ 4. Goddess Durga, West Bengal

Question ID : **441009749224**
Option 1 ID : **4410092950735**
Option 2 ID : **4410092950737**
Option 3 ID : **4410092950734**
Option 4 ID : **4410092950736**

Q.16 Which of the following is a prominent feature of the Peninsular Plateau in India?

Ans
- ✘ 1. Glacial moraines
- ✔ 2. Rift valleys
- ✘ 3. Coral islands
- ✘ 4. Fold mountains

Question ID : **441009265363**
Option 1 ID : **4410091031338**
Option 2 ID : **4410091031337**
Option 3 ID : **4410091031339**
Option 4 ID : **4410091031336**

QuickSarkari.com | WhatsApp Channel | Telegram: t.me/quick_sarkari

Q.17 **Under which of the following circumstances can the Parliament legislate on a matter in the State List?**

Ans
✗ 1. When the Governor of a State requests intervention by the Union Government

✓ 2. When the Rajya Sabha passes a resolution by a two-thirds majority in the national interest

✗ 3. When the Lok Sabha passes a resolution by a simple majority in the national interest

✗ 4. When the President gives assent without recommendation

Question ID : **441009672104**
Option 1 ID : **4410092642516**
Option 2 ID : **4410092642515**
Option 3 ID : **4410092642514**
Option 4 ID : **4410092642517**

Q.18 **What is the primary objective of the 130th Constitutional Amendment Bill (2025)?**

Ans
✓ 1. To mandate the resignation of public officeholders who are jailed

✗ 2. To change the President's election process

✗ 3. To expand the powers of local self-governments

✗ 4. To alter the federal distribution of powers

Question ID : **4410091563046**
Option 1 ID : **4410096173749**
Option 2 ID : **4410096173747**
Option 3 ID : **4410096173748**
Option 4 ID : **4410096173750**

Q.19 **Which award did Jay Shah, the newly appointed ICC Chairman, receive at the Sportstar Aces Awards 2025?**

Ans
✓ 1. Special Recognition Game Changer Award

✗ 2. Sportsman of the Year

✗ 3. Lifetime Achievement Award

✗ 4. Sportstar of the Year

Question ID : **441009160570**
Option 1 ID : **441009636146**
Option 2 ID : **441009636148**
Option 3 ID : **441009636147**
Option 4 ID : **441009636145**

QuickSarkari.com | WhatsApp Channel | Telegram: t.me/quick_sarkari

Q.20 Which of the following Panchayat levels is responsible for district-level planning in India?

Ans
✗ 1. Block Panchayat
✗ 2. Lok Sabha
✗ 3. Gram Panchayat
✓ 4. Zila Parishad

Question ID : **441009101123**
Option 1 ID : **441009402503**
Option 2 ID : **441009402505**
Option 3 ID : **441009402502**
Option 4 ID : **441009402504**

Section : **Arithmetical and Numerical Ability**

Q.1 A solid iron cone with a height of 16 cm and a radius of the base of 12 cm is melted and made into solid spheres of radius 4 cm each. Find the number of spheres formed.

Ans
✗ 1. 10
✗ 2. 11
✓ 3. 9
✗ 4. 8

Question ID : **441009345188**
Option 1 ID : **4410091346703**
Option 2 ID : **4410091346704**
Option 3 ID : **4410091346702**
Option 4 ID : **4410091346701**

Q.2 A, B and C run around a circular track of length 2400 m, with speed of 15 km/hr, 24 km/hr and 27 km/hr, respectively. If they start at the same point and at the same time in the same direction, after how much time will they meet again at the starting point?

Ans
✗ 1. 44 minutes
✓ 2. 48 minutes
✗ 3. 30 minutes
✗ 4. 37 minutes

Question ID : **4410099090**
Option 1 ID : **44100936114**
Option 2 ID : **44100936115**
Option 3 ID : **44100936112**
Option 4 ID : **44100936113**

Quick Sarkari

Q.3 The average weight of a family of five members whose weights are 40 kg, 48 kg, 57 kg, 76 kg and 35 kg is:

Ans
✔ 1. 51.2 kg
✘ 2. 52.4 kg
✘ 3. 50.2 kg
✘ 4. 53.4 kg

Question ID : **441009582039**
Option 1 ID : **4410092283282**
Option 2 ID : **4410092283283**
Option 3 ID : **4410092283284**
Option 4 ID : **4410092283285**

Q.4 The number of a special species of birds in a bird sanctuary on 1st January 2021 is 1600. If their population is increased for two years at the rate 5%, and decreased by 2% for the next one year, what is their total number on 1st January 2024? (corrected to the nearest natural number)

Ans
✔ 1. 1729
✘ 2. 1720
✘ 3. 1629
✘ 4. 1825

Question ID : **44100927875**
Option 1 ID : **441009111049**
Option 2 ID : **441009111050**
Option 3 ID : **441009111048**
Option 4 ID : **441009111051**

Q.5 ₹6,510 is divided among A, B, C and D in such a way that the shares of A and B, B and C, and C and D are in the ratios of 2 : 3, 4 : 5 and 6 : 7, respectively. The share of A (in ₹) is:

Ans
✘ 1. 932
✔ 2. 992
✘ 3. 1,032
✘ 4. 962

Question ID : **441009899014**
Option 1 ID : **4410093550127**
Option 2 ID : **4410093550126**
Option 3 ID : **4410093550128**
Option 4 ID : **4410093550129**

QuickSarkari.com | WhatsApp Channel | Telegram: t.me/quick_sarkari

Q.6 Two numbers are in the ratio 3 : 5. If the sum of numbers is 9

Ans
✔ 1. 36, 60
✘ 2. 35, 61
✘ 3. 40, 56
✘ 4. 45, 51

Question ID : **44100911709**
Option 1 ID : **44100946643**
Option 2 ID : **44100946646**
Option 3 ID : **44100946645**
Option 4 ID : **44100946644**

Q.7 What is the greatest number which, when divided by 37 and 60, leaves remainders 1 and 4, respectively?

Ans
✘ 1. 7
✔ 2. 4
✘ 3. 5
✘ 4. 8

Question ID : **4410098242**
Option 1 ID : **44100932677**
Option 2 ID : **44100932678**
Option 3 ID : **44100932676**
Option 4 ID : **44100932679**

Q.8 A shopkeeper mixes two varieties of tea costing ₹240/kg and ₹280/kg in a ratio of 3:2 and sells the mixture at ₹300/kg. What is the profit percentage? (Round off your answer to two decimal places.)

Ans
✔ 1. 17.19%
✘ 2. 18.18%
✘ 3. 15.16%
✘ 4. 25.27%

Question ID : **4410091622219**
Option 1 ID : **4410096407666**
Option 2 ID : **4410096407665**
Option 3 ID : **4410096407664**
Option 4 ID : **4410096407667**

Quick Sarkari

Q.9 The price of onions goes up by 26%. By how much percentage must a housewife reduce her consumption of onions, so that the expenditure on onions remains the same (correct to two places of decimals)?

Ans
✗ 1. 18.72%
✓ 2. 20.63%
✗ 3. 12.56%
✗ 4. 15.23%

Question ID : **4410096007**
Option 1 ID : **44100923807**
Option 2 ID : **44100923808**
Option 3 ID : **44100923805**
Option 4 ID : **44100923806**

Q.10 Two painters P and Q paint the one flat in 12 days. If P alone

Ans
✗ 1. 12
✗ 2. 15
✗ 3. 18
✓ 4. 16

Question ID : **44100920044**
Option 1 ID : **44100979905**
Option 2 ID : **44100979906**
Option 3 ID : **44100979908**
Option 4 ID : **44100979907**

Q.11 What sum of money (in ₹) will yield ₹860 as simple interest in 2 years at 10% per annum?1436

Ans
✗ 1. 4,500
✓ 2. 4,300
✗ 3. 3,800
✗ 4. 4,700

Question ID : **441009852718**
Option 1 ID : **4410093363846**
Option 2 ID : **4410093363844**
Option 3 ID : **4410093363845**
Option 4 ID : **4410093363847**

Quick Sarkari

Q.12 16 men can dig a well 69 feet deep in 13 days. How many men can dig a well 138 feet deep in 8 days?

Ans
✔ 1. 52
✘ 2. 55
✘ 3. 53
✘ 4. 51

Question ID : **441009541631**
Option 1 ID : **4410092121920**
Option 2 ID : **4410092121921**
Option 3 ID : **4410092121922**
Option 4 ID : **4410092121923**

Q.13 In a sale, 60% of the goods are sold at a profit of 27%. Of the remaining goods, 30% are sold at a profit of 39%, and the rest are sold at a loss of 26%. If the overall profit is x%, determine the value of x.

Ans
✔ 1. 13.6
✘ 2. 5.5
✘ 3. 8
✘ 4. 3

Question ID : **441009915084**
Option 1 ID : **4410093614590**
Option 2 ID : **4410093614588**
Option 3 ID : **4410093614589**
Option 4 ID : **4410093614587**

Q.14 If the radius of a spherical balloon is increased by 2 cm, then its surface area increases by 352 cm^2. The radius of the balloon after the increase was:

Ans
✔ 1. 8 cm
✘ 2. 10 cm
✘ 3. 4 cm
✘ 4. 6 cm

Question ID : **44100944865**
Option 1 ID : **441009178676**
Option 2 ID : **441009178678**
Option 3 ID : **441009178679**
Option 4 ID : **441009178677**

QuickSarkari.com | WhatsApp Channel | Telegram: t.me/quick_sarkari

Q.15 The marked price of a television is ₹60,000. During the festive season, a certain percentage of discount is declared. Mr. Gopal bought it at the reduced price. He sold it at ₹70,000 and got a profit of 40%, what is the percentage of discount declared on it?

Ans
✗ 1. $12\frac{2}{3}\%$
✗ 2. $18\frac{2}{5}\%$
✓ 3. $16\frac{2}{3}\%$
✗ 4. $11\frac{2}{5}\%$

Question ID : **44100944658**
Option 1 ID : **441009177851**
Option 2 ID : **441009177854**
Option 3 ID : **441009177852**
Option 4 ID : **441009177853**

Q.16 A vessel has 20 litres of milk. From this vessel, 5 litres of milk is taken out and replaced by water. The process is repeated once more. Find the quantity of milk (in litres, rounded off to two decimal places) remaining in the vessel.

Ans
✓ 1. 11.25
✗ 2. 11.75
✗ 3. 12.25
✗ 4. 12.75

Question ID : **441009305046**
Option 1 ID : **4410091186854**
Option 2 ID : **4410091186856**
Option 3 ID : **4410091186855**
Option 4 ID : **4410091186857**

Q.17 Find the area (in cm^2) of an equilateral triangle whose side is 4

Ans
✗ 1. $18\sqrt{3}$
✓ 2. $12\sqrt{3}$
✗ 3. $36\sqrt{3}$
✗ 4. $24\sqrt{3}$

Question ID : **4410099004**
Option 1 ID : **44100935782**
Option 2 ID : **44100935783**
Option 3 ID : **44100935780**
Option 4 ID : **44100935781**

QuickSarkari.com | WhatsApp Channel | Telegram: t.me/quick_sarkari

Q.18 A man travels from A to B with speed of 18 km/hr and comes back from B to A with 22 km/hr. Find his average speed (in km/hr).

Ans
✗ 1. 20.2
✗ 2. 21.4
✗ 3. 21.9
✓ 4. 19.8

Question ID : **4410098520**
Option 1 ID : **44100933813**
Option 2 ID : **44100933814**
Option 3 ID : **44100933815**
Option 4 ID : **44100933812**

Q.19 The line graph given below shows the maximum temperature (in degree celsius) on the seven days of a particular week.

Study the graph and answer the question that follows.



Find the average temperature (in degree celsius) of first four days of the week (i.e, Sunday to Wednesday).

Ans
✗ 1. 32
✓ 2. 34.5
✗ 3. 42.5
✗ 4. 39

Question ID : **4410095718**
Option 1 ID : **44100922650**
Option 2 ID : **44100922651**
Option 3 ID : **44100922653**
Option 4 ID : **44100922652**

QuickSarkari.com | WhatsApp Channel | Telegram: t.me/quick_sarkari

Q.20 The value of $4 \times \sqrt{\frac{11}{161051}} + 3.5$ is equal to:

Ans
✔ 1. $\frac{855}{242}$
✘ 2. $\frac{242}{855}$
✘ 3. $\frac{242}{955}$
✘ 4. $\frac{955}{242}$

Question ID : **441009209572**
Option 1 ID : **441009823571**
Option 2 ID : **441009823573**
Option 3 ID : **441009823574**
Option 4 ID : **441009823572**

Section : **English Language and Comprehension**

Q.1 **In the following question a statement has been given with highlighted text. You are required to replace the text with the correct idiom from the given alternatives.**

Although he seems trustworthy, in reality he is an unreliable person who often cheats his friends.

Ans
✘ 1. A man of letters
✔ 2. A fair-weather friend
✘ 3. A man of means
✘ 4. A gentleman at large

Question ID : **4410091260971**
Option 1 ID : **4410094976741**
Option 2 ID : **4410094976744**
Option 3 ID : **4410094976743**
Option 4 ID : **4410094976742**

Q.2 **Choose the appropriate option to complete the sentence.**

Dr. Meera emphasized ___ importance of ethics in journalism and highlighted ___ role of responsible reporting in shaping society.

Ans
✘ 1. an / a
✘ 2. a / a
✔ 3. the / the
✘ 4. the / a

Question ID : **4410091308116**
Option 1 ID : **4410095164125**
Option 2 ID : **4410095164123**
Option 3 ID : **4410095164124**
Option 4 ID : **4410095164126**

QuickSarkari.com | WhatsApp Channel | Telegram: t.me/quick_sarkari

Q.3 **Identify the misspelt word in the sentence and choose the option that has the correct spelling.**
She spoke eloquently, yet a sudden surge of embarassment made her lose her train of thought.

Ans
✗ 1. She spoke eloqeuently
✓ 2. of embarrassment made
✗ 3. yet a sudden surege
✗ 4. her loose her train of thought.

Question ID : **4410091526610**
Option 1 ID : **4410096029558**
Option 2 ID : **4410096029560**
Option 3 ID : **4410096029559**
Option 4 ID : **4410096029561**

Q.4 **Select the most appropriate antonym of the underlined word in the given sentence.**

He wrote an <u>extensive</u> report.

Ans
✓ 1. brief
✗ 2. alternative
✗ 3. positive
✗ 4. ambiguous

Question ID : **4410091529504**
Option 1 ID : **4410096041104**
Option 2 ID : **4410096041106**
Option 3 ID : **4410096041103**
Option 4 ID : **4410096041105**

Q.5 **Select the most appropriate option that can substitute the underlined words in the given sentence.**
The council <u>having the agreement and consent of all</u> resolved to remove it.

Ans
✗ 1. impulsively
✗ 2. leisurely
✗ 3. melancholy
✓ 4. unanimously

Question ID : **4410091543783**
Option 1 ID : **4410096098225**
Option 2 ID : **4410096098223**
Option 3 ID : **4410096098222**
Option 4 ID : **4410096098224**

QuickSarkari.com | WhatsApp Channel | Telegram: t.me/quick_sarkari

Q.6 **In the following sentence, a segment is highlighted. You are required to replace the highlighted text with the correct proverb from the given options.**
She finally achieved a spotless kitchen because she believes that hard work produces the best results.

Ans
✗ 1. great oaks grow from small acorns
✓ 2. elbow grease is the best polish
✗ 3. fair exchange is no robbery
✗ 4. easier said than done

Question ID : **4410091691009**
Option 1 ID : **4410096670245**
Option 2 ID : **4410096670243**
Option 3 ID : **4410096670244**
Option 4 ID : **4410096670242**

Q.7 **Select the most appropriate option that can substitute the underlined words in the given sentence.**
Unless you have a sound attitude of mind, a right psychology, you cannot construct or reconstruct anything that will remain firm.

Ans
✗ 1. admit
✓ 2. endure
✗ 3. compete
✗ 4. persuade

Question ID : **4410091543747**
Option 1 ID : **4410096098054**
Option 2 ID : **4410096098055**
Option 3 ID : **4410096098056**
Option 4 ID : **4410096098057**

Q.8 **Parts of the given sentence have been underlined. One of them may contain a spelling error. Select the option with a misspelt word.**

Several of her patients have made aleggations of professional misconduct against her.

Ans
✗ 1. Professional
✗ 2. Misconduct
✓ 3. Aleggations
✗ 4. Several

Question ID : **4410091385270**
Option 1 ID : **4410095471822**
Option 2 ID : **4410095471823**
Option 3 ID : **4410095471821**
Option 4 ID : **4410095471820**

QuickSarkari.com | WhatsApp Channel | Telegram: t.me/quick_sarkari

Q.9 The following sentence has been divided into segments. While the first segment (S1) is in the correct order, the segments below it are jumbled up. Arrange the segments in the correct order to form a meaningful and coherent sentence.

Fixed segment:
As the sun dipped below the horizon, (S1)

Jumbled segments:
painting the sky in hues of orange and pink (P)/ a cool breeze rustled the leaves (Q)/ casting long shadows across the fields (R)/ and the world seemed to pause for a moment (S)

Ans
✔ 1. PQRS
✘ 2. PSRQ
✘ 3. RQSP
✘ 4. PRSQ

Question ID : **44100929853**
Option 1 ID : **441009118870**
Option 2 ID : **441009118872**
Option 3 ID : **441009118871**
Option 4 ID : **441009118869**

Q.10 Select the most appropriate article to fill in the blank. If no article is needed, select 'No article required'.
She visited _____ Taj Mahal during her vacation in Agra.

Ans
✘ 1. an
✘ 2. a
✔ 3. the
✘ 4. No article required

Question ID : **4410091113652**
Option 1 ID : **4410094390607**
Option 2 ID : **4410094390606**
Option 3 ID : **4410094390608**
Option 4 ID : **4410094390609**

Q.11 Rearrange all the segments to form a coherent statement.

was shrouded in darkness (P) / the abandoned house (Q) / creaking with every gust of wind (R) / standing at the edge of the forest (S)

Ans
✘ 1. QRSP
✔ 2. SQPR
✘ 3. QSPR
✘ 4. PQRS

Question ID : **4410093246**
Option 1 ID : **44100912991**
Option 2 ID : **44100912992**
Option 3 ID : **44100912994**
Option 4 ID : **44100912993**

QuickSarkari.com | WhatsApp Channel | Telegram: t.me/quick_sarkari

Q.12 Complete the sentence with the appropriate word.

The proposal was accepted _____ minor revisions were made to the final draft.

Ans
✗ 1. until
✗ 2. unless
✓ 3. after
✗ 4. whereas

Question ID : **4410091553006**
Option 1 ID : **4410096134341**
Option 2 ID : **4410096134342**
Option 3 ID : **4410096134340**
Option 4 ID : **4410096134343**

Q.13 Choose the most appropriate option to fill in the given blanks.

The book is ___ the table and the pen is ___ the drawer.

Ans
✓ 1. on, in
✗ 2. over, into
✗ 3. above, onto
✗ 4. upon, into

Question ID : **4410091126945**
Option 1 ID : **4410094443332**
Option 2 ID : **4410094443333**
Option 3 ID : **4410094443335**
Option 4 ID : **4410094443334**

Q.14 Select the option that is the most appropriate antonym of the highlighted word in the given sentence.
She decided to **confess** her mistake and tell the truth.

Ans
✗ 1. acknowledge
✗ 2. declare
✗ 3. admit
✓ 4. conceal

Question ID : **4410091603207**
Option 1 ID : **4410096332026**
Option 2 ID : **4410096332027**
Option 3 ID : **4410096332025**
Option 4 ID : **4410096332024**

QuickSarkari.com | WhatsApp Channel | Telegram: t.me/quick_sarkari

Q.15 **Choose the most appropriate option to fill in the given blanks.**

Her voice was ___ and her tone was ___.

Ans
✔ 1. sweet, gentle

✘ 2. sweetness, gentleness

✘ 3. sweeter, gentle

✘ 4. sweetly, gently

Question ID : **4410091126907**
Option 1 ID : **4410094443184**
Option 2 ID : **4410094443186**
Option 3 ID : **4410094443187**
Option 4 ID : **4410094443185**

Comprehension:

Read the passage carefully and answer the following questions.

Fresco painting, derived from the Italian word fresco meaning "fresh," is a celebrated mural technique that involves applying water-based pigments to freshly laid lime plaster. The process begins with preparing the wall surface by spreading wet plaster, which must remain damp to absorb the pigments effectively. As the plaster dries, the pigments chemically bond with it, making the artwork a permanent part of the wall. This method, known as *buon fresco*, requires the artist to work swiftly and precisely, completing each section—called a "giornata" or "day's work"—before the plaster sets. This technique reached its pinnacle during the Italian Renaissance, most notably through the work of Michelangelo. Though he considered himself primarily a sculptor, Michelangelo was commissioned by Pope Julius II to paint the ceiling of the Sistine Chapel, a project he undertook from 1508 to 1512. The ceiling features over 300 figures from the Book of Genesis, including the iconic Creation of Adam, which showcases his mastery of human anatomy and expressive composition. Michelangelo returned to the Sistine Chapel decades later to paint The Last Judgment on the altar wall (1536–1541), a dramatic and emotionally charged fresco that reflects his evolving style and deepening psychological insight. Despite his personal frustrations with the medium, Michelangelo's frescoes remain monumental achievements in art history. His disciplined approach and visionary execution transformed the Sistine Chapel into a lasting testament to the power of fresco as both a technical and expressive form.

SubQuestion No : 16

Q.16 **Identify the most appropriate title for the passage.**

Ans
✘ 1. The History of Italian Plaster

✘ 2. The Art and History of Sculpture

✔ 3. Michelangelo and the Pinnacle of Fresco Painting

✘ 4. Pope Julius II and his Love for Fresco

Question ID : **4410091298322**
Option 1 ID : **4410095125629**
Option 2 ID : **4410095125626**
Option 3 ID : **4410095125627**
Option 4 ID : **4410095125628**

Comprehension:

Read the passage carefully and answer the following questions.

Fresco painting, derived from the Italian word fresco meaning "fresh," is a celebrated mural technique that involves applying water-based pigments to freshly laid lime plaster. The process begins with preparing the wall surface by spreading wet plaster, which must remain damp to absorb the pigments effectively. As the plaster dries, the pigments chemically bond with it, making the artwork a permanent part of the wall. This method, known as *buon fresco*, requires the artist to work swiftly and precisely, completing each section—called a "giornata" or "day's work"—before the plaster sets. This technique reached its pinnacle during the Italian Renaissance, most notably through the work of Michelangelo. Though he considered himself primarily a sculptor, Michelangelo was commissioned by Pope Julius II to paint the ceiling of the Sistine Chapel, a project he undertook from 1508 to 1512. The ceiling features over 300 figures from the Book of Genesis, including the iconic Creation of Adam, which showcases his mastery of human anatomy and expressive composition. Michelangelo returned to the Sistine Chapel decades later to paint The Last Judgment on the altar wall (1536–1541), a dramatic and emotionally charged fresco that reflects his evolving style and deepening psychological insight. Despite his personal frustrations with the medium, Michelangelo's frescoes remain monumental achievements in art history. His disciplined approach and visionary execution transformed the Sistine Chapel into a lasting testament to the power of fresco as both a technical and expressive form.

SubQuestion No : 17

Q.17 Identify the correct inference that can be drawn from the passage.

Ans

✗ 1. The technique Buon Fresco requires artists to work very slowly and patiently

✗ 2. Pope Julius II was the greatest Fresco painter of Italian Rennaisance

✗ 3. Michaelangelo was moody and did not agree to the commission for Sistine Chapel

✓ 4. Michaelangelo's artistic style and psychology evolved over time and his frescoes reflect it

Question ID : **4410091298323**
Option 1 ID : **4410095125633**
Option 2 ID : **4410095125631**
Option 3 ID : **4410095125630**
Option 4 ID : **4410095125632**

QuickSarkari

Comprehension:

Read the passage carefully and answer the following questions.

Fresco painting, derived from the Italian word fresco meaning "fresh," is a celebrated mural technique that involves applying water-based pigments to freshly laid lime plaster. The process begins with preparing the wall surface by spreading wet plaster, which must remain damp to absorb the pigments effectively. As the plaster dries, the pigments chemically bond with it, making the artwork a permanent part of the wall. This method, known as *buon fresco*, requires the artist to work swiftly and precisely, completing each section—called a "giornata" or "day's work"—before the plaster sets. This technique reached its pinnacle during the Italian Renaissance, most notably through the work of Michelangelo. Though he considered himself primarily a sculptor, Michelangelo was commissioned by Pope Julius II to paint the ceiling of the Sistine Chapel, a project he undertook from 1508 to 1512. The ceiling features over 300 figures from the Book of Genesis, including the iconic Creation of Adam, which showcases his mastery of human anatomy and expressive composition. Michelangelo returned to the Sistine Chapel decades later to paint The Last Judgment on the altar wall (1536–1541), a dramatic and emotionally charged fresco that reflects his evolving style and deepening psychological insight. Despite his personal frustrations with the medium, Michelangelo's frescoes remain monumental achievements in art history. His disciplined approach and visionary execution transformed the Sistine Chapel into a lasting testament to the power of fresco as both a technical and expressive form.

SubQuestion No : 18

Q.18 Choose an appropriate structure of the passage from the options given below.

Ans

✗ 1. compare and contrast

✓ 2. expository

✗ 3. cause and effect

✗ 4. argumentative

Question ID : **4410091298324**
Option 1 ID : **4410095125637**
Option 2 ID : **4410095125634**
Option 3 ID : **4410095125636**
Option 4 ID : **4410095125635**

QuickSarkari.com | WhatsApp Channel | Telegram: t.me/quick_sarkari

Comprehension:

Read the passage carefully and answer the following questions.

Fresco painting, derived from the Italian word fresco meaning "fresh," is a celebrated mural technique that involves applying water-based pigments to freshly laid lime plaster. The process begins with preparing the wall surface by spreading wet plaster, which must remain damp to absorb the pigments effectively. As the plaster dries, the pigments chemically bond with it, making the artwork a permanent part of the wall. This method, known as *buon fresco*, requires the artist to work swiftly and precisely, completing each section—called a "giornata" or "day's work"—before the plaster sets. This technique reached its pinnacle during the Italian Renaissance, most notably through the work of Michelangelo. Though he considered himself primarily a sculptor, Michelangelo was commissioned by Pope Julius II to paint the ceiling of the Sistine Chapel, a project he undertook from 1508 to 1512. The ceiling features over 300 figures from the Book of Genesis, including the iconic Creation of Adam, which showcases his mastery of human anatomy and expressive composition. Michelangelo returned to the Sistine Chapel decades later to paint The Last Judgment on the altar wall (1536–1541), a dramatic and emotionally charged fresco that reflects his evolving style and deepening psychological insight. Despite his personal frustrations with the medium, Michelangelo's frescoes remain monumental achievements in art history. His disciplined approach and visionary execution transformed the Sistine Chapel into a lasting testament to the power of fresco as both a technical and expressive form.

SubQuestion No : 19

Q.19 What is the correct tone of the passage?

Ans

✗ 1. Assertive

✗ 2. Deductive

✗ 3. Imperative

✓ 4. Informative

Question ID : **4410091298325**
Option 1 ID : **4410095125638**
Option 2 ID : **4410095125640**
Option 3 ID : **4410095125641**
Option 4 ID : **4410095125639**

QuickSarkari.com | WhatsApp Channel | Telegram: t.me/quick_sarkari

Comprehension:

Read the passage carefully and answer the following questions.

Fresco painting, derived from the Italian word fresco meaning "fresh," is a celebrated mural technique that involves applying water-based pigments to freshly laid lime plaster. The process begins with preparing the wall surface by spreading wet plaster, which must remain damp to absorb the pigments effectively. As the plaster dries, the pigments chemically bond with it, making the artwork a permanent part of the wall. This method, known as *buon fresco*, requires the artist to work swiftly and precisely, completing each section—called a "giornata" or "day's work"—before the plaster sets. This technique reached its pinnacle during the Italian Renaissance, most notably through the work of Michelangelo. Though he considered himself primarily a sculptor, Michelangelo was commissioned by Pope Julius II to paint the ceiling of the Sistine Chapel, a project he undertook from 1508 to 1512. The ceiling features over 300 figures from the Book of Genesis, including the iconic Creation of Adam, which showcases his mastery of human anatomy and expressive composition. Michelangelo returned to the Sistine Chapel decades later to paint The Last Judgment on the altar wall (1536–1541), a dramatic and emotionally charged fresco that reflects his evolving style and deepening psychological insight. Despite his personal frustrations with the medium, Michelangelo's frescoes remain monumental achievements in art history. His disciplined approach and visionary execution transformed the Sistine Chapel into a lasting testament to the power of fresco as both a technical and expressive form.

SubQuestion No : 20

Q.20 Find the correct synonym for the word pinnacle in the passage.

Ans

✗ 1. oracle

✗ 2. reek

✗ 3. sneak

✓ 4. peak

Question ID : **4410091298326**
Option 1 ID : **4410095125642**
Option 2 ID : **4410095125645**
Option 3 ID : **4410095125643**
Option 4 ID : **4410095125644**

Section : **Hindi Language and Comprehension**

Q.1 नीचे दिए गए वाक्य के किस भाग में वर्तनी संबंधी अशुद्धि है ?
उसे कथा कहने की तीव्र आकांछा हो रही है ।

Ans

✗ 1. उसे कथा

✓ 2. आकांछा

✗ 3. हो रही है ।

✗ 4. कहने की तीव्र

Question ID : **4410091624829**
Option 1 ID : **4410096417843**
Option 2 ID : **4410096417845**
Option 3 ID : **4410096417846**
Option 4 ID : **4410096417844**

Q.2 निम्नलिखित वाक्य में रेखांकित शब्द के विलोम शब्द का चयन दिए गए विकल्पों में से कीजिए-
जगत के 'बाह्य' रूप को देखकर मोहित न होइए।

Ans
✗ 1. मानसिक
✗ 2. बौद्धिक
✓ 3. आंतरिक
✗ 4. आत्मिक

Question ID : **4410091618672**
Option 1 ID : **4410096393561**
Option 2 ID : **4410096393562**
Option 3 ID : **4410096393560**
Option 4 ID : **4410096393559**

Q.3 'परीक्षा में सफलता प्राप्त करने के लिए सलीम ----------पढ़ता है।' वाक्य के रिक्त स्थान के लिए क्रिया-विशेषण शब्द कौन-सा है?

Ans
✗ 1. विज्ञान
✗ 2. कुंजी
✓ 3. नियमित
✗ 4. किताब

Question ID : **4410091278324**
Option 1 ID : **4410095045246**
Option 2 ID : **4410095045245**
Option 3 ID : **4410095045243**
Option 4 ID : **4410095045244**

Q.4 उन्हें यह देखकर बड़ा आश्चर्य हुआ।
उपर्युक्त रेखांकित शब्द का पर्यायवाची क्या होगा ?

Ans
✓ 1. विशाल
✗ 2. जटिल
✗ 3. भयानक
✗ 4. गंभीर

Question ID : **4410091624846**
Option 1 ID : **4410096417912**
Option 2 ID : **4410096417913**
Option 3 ID : **4410096417911**
Option 4 ID : **4410096417914**

QuickSarkari.com | WhatsApp Channel | Telegram: t.me/quick_sarkari

Q.5 नीचे दिए गए वाक्यों में से वर्तनी की दृष्टि से शुद्ध वाक्य का चयन कीजिए।

Ans
✗ 1. मेरा नाम शभूनाथ है।
✗ 2. संगीत में निरसता थी।
✓ 3. खरगोश निरीह पशु है।
✗ 4. नेपाल के राजा हिंदु हैं।

Question ID : **4410091526671**
Option 1 ID : **4410096029803**
Option 2 ID : **4410096029804**
Option 3 ID : **4410096029805**
Option 4 ID : **4410096029802**

Q.6 नीचे दिए गए वाक्य खंडों को सही क्रम में व्यवस्थित करें -
1. कम्पन बढ़
2. उसके हृदय
3. रहे थे
4. में जैसे

Ans
✓ 1. 2413
✗ 2. 2134
✗ 3. 4132
✗ 4. 1324

Question ID : **441009647593**
Option 1 ID : **4410092544421**
Option 2 ID : **4410092544419**
Option 3 ID : **4410092544420**
Option 4 ID : **4410092544418**

Q.7 निम्नलिखित वाक्य के रेखांकित शब्द का पर्यायवाची कौन-सा नहीं है?
'सत्संग में आज श्री कृष्ण की महिमा का गुणगान हुआ।'

Ans
✗ 1. गरिमा
✓ 2. शुभ
✗ 3. महत्ता
✗ 4. गौरव

Question ID : **4410091530815**
Option 1 ID : **4410096046343**
Option 2 ID : **4410096046346**
Option 3 ID : **4410096046345**
Option 4 ID : **4410096046344**

QuickSarkari.com | WhatsApp Channel | Telegram: t.me/quick_sarkari

Q.8 मेरे घर .....चार आदमी हैं ।
उपर्युक्त वाक्य में रिक्त स्थान की पूर्ति के लिए उचित कारक शब्द का चयन करें –

Ans
✗ 1. का
✓ 2. में
✗ 3. ने
✗ 4. से

Question ID : **4410091308689**
Option 1 ID : **4410095166394**
Option 2 ID : **4410095166395**
Option 3 ID : **4410095166397**
Option 4 ID : **4410095166396**

Q.9 उपयुक्त 'क्रिया' का चयन कर रिक्त स्थान की पूर्ति कीजिए ।
'राघव साइकिल .....रहा है।'

Ans
✗ 1. उड़ा
✗ 2. घुला
✗ 3. सुला
✓ 4. चला

Question ID : **4410091524816**
Option 1 ID : **4410096022474**
Option 2 ID : **4410096022473**
Option 3 ID : **4410096022471**
Option 4 ID : **4410096022472**

Q.10 निम्नांकित विकल्पों में से उचित क्रिया का चयन करके वाक्य पूर्ण करें-
परीक्षा की तैयारी के लिए बच्चों ने सारी रात जागकर..... की।

Ans
✗ 1. पढ़े
✗ 2. पढना
✗ 3. पढ़ते
✓ 4. पढ़ाई

Question ID : **4410091254797**
Option 1 ID : **4410094952175**
Option 2 ID : **4410094952172**
Option 3 ID : **4410094952173**
Option 4 ID : **4410094952174**

QuickSarkari.com | WhatsApp Channel | Telegram: t.me/quick_sarkari

Q.11 वाक्य में रेखांकित शब्द का सही विलोम चुनिए।
'रोहन ने सुरेश के साथ घात किया है ।'

Ans
✗ 1. अचर
✗ 2. नगर
✓ 3. प्रतिघात
✗ 4. चतुर

Question ID : **4410091526898**
Option 1 ID : **4410096030702**
Option 2 ID : **4410096030705**
Option 3 ID : **4410096030704**
Option 4 ID : **4410096030703**

Q.12 दिए गए वाक्य के रिक्त स्थान में क्रिया-विशेषण शब्द का प्रयोग करें -
'पक्षी दाना चुगकर उड़ गये।'

Ans
✗ 1. नहीं
✗ 2. हरेक
✗ 3. तक
✓ 4. उधर

Question ID : **4410091528161**
Option 1 ID : **4410096035837**
Option 2 ID : **4410096035838**
Option 3 ID : **4410096035840**
Option 4 ID : **4410096035839**

Q.13 निम्नलिखित विकल्पों में से रेखांकित शब्द का विलोम पहचानिए।
'इस वर्ष वर्षा अपेक्षाकृत न्यून होने के कारण फसल प्रभावित हो गई है।'

Ans
✗ 1. अभिज्ञ
✗ 2. क्षर
✓ 3. अधिक
✗ 4. सुकाल

Question ID : **4410091629883**
Option 1 ID : **4410096437619**
Option 2 ID : **4410096437620**
Option 3 ID : **4410096437618**
Option 4 ID : **4410096437617**

QuickSarkari.com | WhatsApp Channel | Telegram: t.me/quick_sarkari

Q.14 दिए गए वाक्य को सही क्रम में लगाइए-
(1)किताब (2)पढ़ (3)रही (4)है (5)रिया

Ans
✗ 1. 4 5 1 2 3
✓ 2. 5 1 2 3 4
✗ 3. 2 3 4 5 1
✗ 4. 1 2 3 4 5

Question ID : **4410091141437**
Option 1 ID : **4410094500706**
Option 2 ID : **4410094500704**
Option 3 ID : **4410094500707**
Option 4 ID : **4410094500705**

Q.15 'नाक में नकेल डालना' मुहावरा का सही अर्थ क्या होगा ?

Ans
✓ 1. पूरी तरह वश में करना
✗ 2. तमाशा दिखाना
✗ 3. इलाज करना
✗ 4. घृणा दिलाना

Question ID : **4410091629438**
Option 1 ID : **4410096435839**
Option 2 ID : **4410096435841**
Option 3 ID : **4410096435838**
Option 4 ID : **4410096435840**

Comprehension:

निम्नलिखित गद्यांश को ध्यानपूर्वक पढ़कर पूछे गये प्रश्नों के सही उत्तर दीजिए।
सत्यनिष्ठा जीवन का वह मूल्य है जो व्यक्ति को सत्य के मार्ग पर अडिग रखता है तथा सामाजिक व्यवस्था को मजबूत बनाता है। यह गुण न केवल व्यक्तिगत सफलता का आधार है बल्कि राष्ट्र निर्माण का भी प्राणतत्व है। भ्रष्टाचार और अनैतिकता के इस युग में सत्यनिष्ठा ही समाज को पतन से बचाती है। व्यक्तिगत स्तर पर सत्यनिष्ठा आत्मविश्वास बढ़ाती है तथा मानसिक शांति प्रदान करती है। कार्यालय में ईमानदार कर्मचारी को सम्मान प्राप्त होता है तथा प्रमोशन मिलता है। शिक्षा क्षेत्र में सत्यनिष्ठावान शिक्षक छात्रों को आदर्श प्रस्तुत करते हैं। राजनीति में यह जनसेवा को प्राथमिकता देती है। उद्योगपतियों के लिए सत्यनिष्ठा उपभोक्ता विश्वास अर्जित करती है। परिवार में सत्यनिष्ठा विश्वास का आधार बनती है तथा संतान को नैतिक मूल्य सिखाती है। सामाजिक जीवन में यह साम्प्रदायिक सद्भाव को बढ़ावा देती है। पर्यावरण संरक्षण में सत्यनिष्ठापूर्ण प्रयास ही स्थायी समाधान दे सकते हैं। अंत में सत्यनिष्ठा ही सच्ची अमीरी है जो व्यक्ति को आंतरिक संतुष्टि प्रदान करती है तथा समाज को प्रेरित करती है।

SubQuestion No : 16

Q.16 भ्रष्टाचार के युग में सत्यनिष्ठा समाज को किससे बचाती है?

Ans
✗ 1. आर्थिक विकास से
✗ 2. वैज्ञानिक प्रगति से
✓ 3. पतन से
✗ 4. सांस्कृतिक उत्थान से

Question ID : **4410091626865**
Option 1 ID : **4410096425805**
Option 2 ID : **4410096425803**
Option 3 ID : **4410096425804**
Option 4 ID : **4410096425802**

Comprehension:

निम्नलिखित गद्यांश को ध्यानपूर्वक पढ़कर पूछे गये प्रश्नों के सही उत्तर दीजिए।
सत्यनिष्ठा जीवन का वह मूल्य है जो व्यक्ति को सत्य के मार्ग पर अडिग रखता है तथा सामाजिक व्यवस्था को मजबूत बनाता है। यह गुण न केवल व्यक्तिगत सफलता का आधार है बल्कि राष्ट्र निर्माण का भी प्राणतत्व है। भ्रष्टाचार और अनैतिकता के इस युग में सत्यनिष्ठा ही समाज को पतन से बचाती है। व्यक्तिगत स्तर पर सत्यनिष्ठा आत्मविश्वास बढ़ाती है तथा मानसिक शांति प्रदान करती है। कार्यालय में ईमानदार कर्मचारी को सम्मान प्राप्त होता है तथा प्रमोशन मिलता है। शिक्षा क्षेत्र में सत्यनिष्ठावान शिक्षक छात्रों को आदर्श प्रस्तुत करते हैं। राजनीति में यह जनसेवा को प्राथमिकता देती है। उद्योगपतियों के लिए सत्यनिष्ठा उपभोक्ता विश्वास अर्जित करती है। परिवार में सत्यनिष्ठा विश्वास का आधार बनती है तथा संतान को नैतिक मूल्य सिखाती है। सामाजिक जीवन में यह साम्प्रदायिक सद्भाव को बढ़ावा देती है। पर्यावरण संरक्षण में सत्यनिष्ठापूर्ण प्रयास ही स्थायी समाधान दे सकते हैं। अंत में सत्यनिष्ठा ही सच्ची अमीरी है जो व्यक्ति को आंतरिक संतुष्टि प्रदान करती है तथा समाज को प्रेरित करती है।

SubQuestion No : 17

Q.17 गद्यांश के अनुसार सत्यनिष्ठा का मुख्य कार्य क्या है?

Ans

✗ 1. भौतिक समृद्धि प्राप्त करना

✗ 2. राजनीतिक लाभ कमाना

✓ 3. सत्य के मार्ग पर अडिग रखना

✗ 4. परिवार का विस्तार करना

Question ID : **4410091626866**
Option 1 ID : **4410096425807**
Option 2 ID : **4410096425808**
Option 3 ID : **4410096425806**
Option 4 ID : **4410096425809**

Comprehension:

निम्नलिखित गद्यांश को ध्यानपूर्वक पढ़कर पूछे गये प्रश्नों के सही उत्तर दीजिए।
सत्यनिष्ठा जीवन का वह मूल्य है जो व्यक्ति को सत्य के मार्ग पर अडिग रखता है तथा सामाजिक व्यवस्था को मजबूत बनाता है। यह गुण न केवल व्यक्तिगत सफलता का आधार है बल्कि राष्ट्र निर्माण का भी प्राणतत्व है। भ्रष्टाचार और अनैतिकता के इस युग में सत्यनिष्ठा ही समाज को पतन से बचाती है। व्यक्तिगत स्तर पर सत्यनिष्ठा आत्मविश्वास बढ़ाती है तथा मानसिक शांति प्रदान करती है। कार्यालय में ईमानदार कर्मचारी को सम्मान प्राप्त होता है तथा प्रमोशन मिलता है। शिक्षा क्षेत्र में सत्यनिष्ठावान शिक्षक छात्रों को आदर्श प्रस्तुत करते हैं। राजनीति में यह जनसेवा को प्राथमिकता देती है। उद्योगपतियों के लिए सत्यनिष्ठा उपभोक्ता विश्वास अर्जित करती है। परिवार में सत्यनिष्ठा विश्वास का आधार बनती है तथा संतान को नैतिक मूल्य सिखाती है। सामाजिक जीवन में यह साम्प्रदायिक सद्भाव को बढ़ावा देती है। पर्यावरण संरक्षण में सत्यनिष्ठापूर्ण प्रयास ही स्थायी समाधान दे सकते हैं। अंत में सत्यनिष्ठा ही सच्ची अमीरी है जो व्यक्ति को आंतरिक संतुष्टि प्रदान करती है तथा समाज को प्रेरित करती है।

SubQuestion No : 18

Q.18 गद्यांश के अनुसार सत्यनिष्ठा व्यक्तिगत स्तर पर क्या प्रदान करती है?

Ans

✗ 1. राजनीतिक शक्ति

✗ 2. भौतिक संपत्ति

✓ 3. मानसिक शांति

✗ 4. सामाजिक प्रसिद्धि

Question ID : **4410091626867**
Option 1 ID : **4410096425810**
Option 2 ID : **4410096425813**
Option 3 ID : **4410096425812**
Option 4 ID : **4410096425811**

Comprehension:

निम्नलिखित गद्यांश को ध्यानपूर्वक पढ़कर पूछे गये प्रश्नों के सही उत्तर दीजिए।
सत्यनिष्ठा जीवन का वह मूल्य है जो व्यक्ति को सत्य के मार्ग पर अडिग रखता है तथा सामाजिक व्यवस्था को मजबूत बनाता है। यह गुण न केवल व्यक्तिगत सफलता का आधार है बल्कि राष्ट्र निर्माण का भी प्राणतत्व है। भ्रष्टाचार और अनैतिकता के इस युग में सत्यनिष्ठा ही समाज को पतन से बचाती है। व्यक्तिगत स्तर पर सत्यनिष्ठा आत्मविश्वास बढ़ाती है तथा मानसिक शांति प्रदान करती है। कार्यालय में ईमानदार कर्मचारी को सम्मान प्राप्त होता है तथा प्रमोशन मिलता है। शिक्षा क्षेत्र में सत्यनिष्ठावान शिक्षक छात्रों को आदर्श प्रस्तुत करते हैं। राजनीति में यह जनसेवा को प्राथमिकता देती है। उद्योगपतियों के लिए सत्यनिष्ठा उपभोक्ता विश्वास अर्जित करती है। परिवार में सत्यनिष्ठा विश्वास का आधार बनती है तथा संतान को नैतिक मूल्य सिखाती है। सामाजिक जीवन में यह साम्प्रदायिक सद्भाव को बढ़ावा देती है। पर्यावरण संरक्षण में सत्यनिष्ठापूर्ण प्रयास ही स्थायी समाधान दे सकते हैं। अंत में सत्यनिष्ठा ही सच्ची अमीरी है जो व्यक्ति को आंतरिक संतुष्टि प्रदान करती है तथा समाज को प्रेरित करती है।

SubQuestion No : 19

Q.19 गद्यांश के अनुसार उद्योगपतियों के लिए सत्यनिष्ठा क्या अर्जित करती है?

Ans

✗ 1. बाजार विस्तार

✗ 2. सरकारी अनुदान

✗ 3. प्रतिस्पर्धा कम करना

✓ 4. उपभोक्ता विश्वास

Question ID : **4410091626868**
Option 1 ID : **4410096425816**
Option 2 ID : **4410096425814**
Option 3 ID : **4410096425815**
Option 4 ID : **4410096425817**

Comprehension:

निम्नलिखित गद्यांश को ध्यानपूर्वक पढ़कर पूछे गये प्रश्नों के सही उत्तर दीजिए।
सत्यनिष्ठा जीवन का वह मूल्य है जो व्यक्ति को सत्य के मार्ग पर अडिग रखता है तथा सामाजिक व्यवस्था को मजबूत बनाता है। यह गुण न केवल व्यक्तिगत सफलता का आधार है बल्कि राष्ट्र निर्माण का भी प्राणतत्व है। भ्रष्टाचार और अनैतिकता के इस युग में सत्यनिष्ठा ही समाज को पतन से बचाती है। व्यक्तिगत स्तर पर सत्यनिष्ठा आत्मविश्वास बढ़ाती है तथा मानसिक शांति प्रदान करती है। कार्यालय में ईमानदार कर्मचारी को सम्मान प्राप्त होता है तथा प्रमोशन मिलता है। शिक्षा क्षेत्र में सत्यनिष्ठावान शिक्षक छात्रों को आदर्श प्रस्तुत करते हैं। राजनीति में यह जनसेवा को प्राथमिकता देती है। उद्योगपतियों के लिए सत्यनिष्ठा उपभोक्ता विश्वास अर्जित करती है। परिवार में सत्यनिष्ठा विश्वास का आधार बनती है तथा संतान को नैतिक मूल्य सिखाती है। सामाजिक जीवन में यह साम्प्रदायिक सद्भाव को बढ़ावा देती है। पर्यावरण संरक्षण में सत्यनिष्ठापूर्ण प्रयास ही स्थायी समाधान दे सकते हैं। अंत में सत्यनिष्ठा ही सच्ची अमीरी है जो व्यक्ति को आंतरिक संतुष्टि प्रदान करती है तथा समाज को प्रेरित करती है।

SubQuestion No : 20

Q.20 गद्यांश के अनुसार परिवार में सत्यनिष्ठा किसका आधार बनती है?

Ans

✓ 1. विश्वास

✗ 2. भोजन

✗ 3. धन संचय

✗ 4. यात्रा

Question ID : **4410091626869**
Option 1 ID : **4410096425819**
Option 2 ID : **4410096425820**
Option 3 ID : **4410096425818**
Option 4 ID : **4410096425821**

Section : **Discipline1**

Q.1 **What does the principle of Sequentiality suggest about the order of developmental milestones in children?**

Ans
✗ 1. Development achieves a plateau at the adolescent stage.

✗ 2. Development is influenced solely by environmental factors.

✓ 3. Development follows a pattern where one stage leads to the next.

✗ 4. Children develop specific responses before general activities.

Question ID : **4410091648597**
Option 1 ID : **4410096510611**
Option 2 ID : **4410096510608**
Option 3 ID : **4410096510609**
Option 4 ID : **4410096510610**

Q.2 **Which component of RTE-2009 is central to improving teacher availability in elementary schools?**

Ans
✓ 1. Prescribed pupil–teacher ratio (PTR) norms

✗ 2. Annual national merit tests for teachers

✗ 3. Mandatory transfer of teachers every three years

✗ 4. Allowing teachers to work part-time in private institutions

Question ID : **4410091572427**
Option 1 ID : **4410096210659**
Option 2 ID : **4410096210656**
Option 3 ID : **4410096210657**
Option 4 ID : **4410096210658**

Q.3 **If a policy aims to promote harmony in a multicultural and multireligious society, which approach is most effective?**

Ans
✓ 1. Respecting different cultures and religions

✗ 2. Ignoring differences among communities

✗ 3. Enforcing a single culture for all citizens

✗ 4. Discouraging cultural expression

Question ID : **4410091686673**
Option 1 ID : **4410096653522**
Option 2 ID : **4410096653524**
Option 3 ID : **4410096653523**
Option 4 ID : **4410096653525**

QuickSarkari

Q.4 Which principle of development explains that changes in an individual occur from conception to death and at each stage what happens influences the next?

Ans
✗ 1. Differentiality
✗ 2. Generality to Specificity
✓ 3. Continuity
✗ 4. Sequentiality

Question ID : **4410091639525**
Option 1 ID : **4410096475646**
Option 2 ID : **4410096475647**
Option 3 ID : **4410096475645**
Option 4 ID : **4410096475648**

Q.5 What is one of the major impacts of caste-based discrimination in India?

Ans
✗ 1. It ensures equal representation of all castes in government positions.
✓ 2. It divides society into artificial groups based on caste rather than merit.
✗ 3. It encourages unity among different castes in the political domain.
✗ 4. It promotes economic equality among different castes.

Question ID : **4410091651089**
Option 1 ID : **4410096520468**
Option 2 ID : **4410096520466**
Option 3 ID : **4410096520467**
Option 4 ID : **4410096520469**

Q.6 When considering the development of personality in children, which aspect is most central to its definition?

Ans
✗ 1. Occasional academic achievements
✗ 2. Random emotional outbursts during play
✓ 3. Stable behavioral and emotional characteristics
✗ 4. Isolated peer friendships at school

Question ID : **4410091620664**
Option 1 ID : **4410096401462**
Option 2 ID : **4410096401464**
Option 3 ID : **4410096401461**
Option 4 ID : **4410096401463**

Quick Sarkari

Q.7 **Higher dropout rates among SC/ST students than those among other groups primarily indicate a failure to achieve social equality through education. This reflects:**

Ans
✔ 1. Entrenched societal stratification
✘ 2. Weakened sense of nationalism
✘ 3. Lack of curriculum transformation
✘ 4. Overemphasis on mother tongue

Question ID : **4410091557200**
Option 1 ID : **4410096151326**
Option 2 ID : **4410096151327**
Option 3 ID : **4410096151325**
Option 4 ID : **4410096151328**

Q.8 **A teacher is developing a lesson plan to address multi-dimensional poverty among girls. Which component is most essential for effective learning outcomes?**

Ans
✘ 1. Focusing only on textbook completion
✔ 2. Incorporating life skills and agency-building activities
✘ 3. Separating girls from boys during lessons
✘ 4. Assigning extra homework to girls

Question ID : **4410091628745**
Option 1 ID : **4410096433127**
Option 2 ID : **4410096433126**
Option 3 ID : **4410096433129**
Option 4 ID : **4410096433128**

Q.9 **According to educational psychology, what does the principle of 'individual differences' mean in childhood growth and development?**

Ans
✘ 1. All children reach milestones at the same time.
✘ 2. Growth and development do not vary among children.
✔ 3. Each child grows and develops at their own unique rate.
✘ 4. Children develop only through formal education.

Question ID : **4410091622610**
Option 1 ID : **4410096409217**
Option 2 ID : **4410096409218**
Option 3 ID : **4410096409216**
Option 4 ID : **4410096409219**

QuickSarkari.com | WhatsApp Channel | Telegram: t.me/quick_sarkari

Q.10 A developmental psychologist observes that an infant gains postural control of the neck before being able to coordinate shoulder and elbow movements, and only later develops precise manipulation using the fingers. This pattern of motor development best illustrates which principle of growth and development?

Ans
✔ 1. Cephalocaudal development principle
✘ 2. Predictability in development principle
✘ 3. Proximodistal development principle
✘ 4. Continuity of development principle

Question ID : **4410091628555**
Option 1 ID : **4410096432374**
Option 2 ID : **4410096432377**
Option 3 ID : **4410096432375**
Option 4 ID : **4410096432376**

Q.11 What is a major societal challenge in India involving lack of resources?

Ans
✘ 1. Cultural heritage
✔ 2. Poverty
✘ 3. Diversity
✘ 4. Gender equality

Question ID : **4410091627842**
Option 1 ID : **4410096429572**
Option 2 ID : **4410096429573**
Option 3 ID : **4410096429570**
Option 4 ID : **4410096429571**

Q.12 Which activity is an example of an activity for fine motor skill development?

Ans
✘ 1. Climbing a ladder
✔ 2. Buttoning clothes
✘ 3. Jumping rope
✘ 4. Running in a park

Question ID : **4410091648421**
Option 1 ID : **4410096509914**
Option 2 ID : **4410096509913**
Option 3 ID : **4410096509915**
Option 4 ID : **4410096509912**

QuickSarkari.com | WhatsApp Channel | Telegram: t.me/quick_sarkari

Q.13 **Which branch of psychology focuses on the study of teaching and learning processes in educational settings?**

Ans
✗ 1. Industrial Psychology
✗ 2. Abnormal Psychology
✓ 3. Educational Psychology
✗ 4. Child Psychology

Question ID : **4410091611170**
Option 1 ID : **4410096363538**
Option 2 ID : **4410096363536**
Option 3 ID : **4410096363537**
Option 4 ID : **4410096363535**

Q.14 **A teacher observes that a group of children in her classroom are at different stages of mastering fine motor skills, with some able to write clearly and others still struggling to hold a pencil. Which principle of growth and development does this situation best illustrate?**

Ans
✗ 1. Continuity and Gradualness
✗ 2. Sequential and Directional Patterns
✗ 3. Integration and Predictability
✓ 4. Individual Variation and Rates

Question ID : **4410091628660**
Option 1 ID : **4410096432787**
Option 2 ID : **4410096432786**
Option 3 ID : **4410096432789**
Option 4 ID : **4410096432788**

Q.15 **National integration, as viewed by Dr. S. Radhakrishnan, primarily develops in the:**

Ans
✓ 1. Minds and hearts of people
✗ 2. Political institutions
✗ 3. Physical infrastructure
✗ 4. Economic systems

Question ID : **4410091626534**
Option 1 ID : **4410096424508**
Option 2 ID : **4410096424511**
Option 3 ID : **4410096424509**
Option 4 ID : **4410096424510**

QuickSarkari.com | WhatsApp Channel | Telegram: t.me/quick_sarkari

Q.16 **Which of the following was a major recommendation of the Secondary Education Commission (1952–53)?**

Ans
- ✔ 1. Establishment of multipurpose secondary schools
- ✘ 2. Introduction of the Mid-Day Meal Scheme
- ✘ 3. Universalisation of higher education
- ✘ 4. Introduction of the Common School System

Question ID : **4410091633008**
Option 1 ID : **4410096450151**
Option 2 ID : **4410096450153**
Option 3 ID : **4410096450152**
Option 4 ID : **4410096450150**

Q.17 **A teacher observes persistent tension between student sub-groups based on language loyalties. To apply the objective of peace education, which method should the teacher prioritize?**

Ans
- ✘ 1. Enforcing strict common rules
- ✔ 2. Fostering collective conflict resolution
- ✘ 3. Isolating conflicting student groups
- ✘ 4. Emphasizing individual merit solely

Question ID : **4410091549704**
Option 1 ID : **4410096121515**
Option 2 ID : **4410096121517**
Option 3 ID : **4410096121516**
Option 4 ID : **4410096121518**

Q.18 **In the context of Contemporary Indian Society, how does the process of socialization within formal education settings contribute to the development of individual identity?**

Ans
- ✔ 1. It shapes values and norms through structured interaction
- ✘ 2. It mainly fosters individual career goals and aspirations
- ✘ 3. It teaches academic skills through unstructured interaction
- ✘ 4. It provides only economic opportunities for individuals

Question ID : **4410091678830**
Option 1 ID : **4410096623529**
Option 2 ID : **4410096623531**
Option 3 ID : **4410096623532**
Option 4 ID : **4410096623530**

QuickSarkari.com | WhatsApp Channel | Telegram: t.me/quick_sarkari

Q.19 **Among the significant impacts of the University Education Commission, which outcome best represents the Commission's influence on the development of higher education policy in India?**

Ans
- ✗ 1. Creation of primary schools in rural areas
- ✗ 2. Introduction of the 10+2+3 education system
- ✗ 3. Launch of the National Literacy Mission
- ✓ 4. Establishment of the University Grants Commission

Question ID : **4410091621601**
Option 1 ID : **4410096405209**
Option 2 ID : **4410096405208**
Option 3 ID : **4410096405210**
Option 4 ID : **4410096405207**

Q.20 **In social studies, a key purpose of sociology is _____**

Ans
- ✗ 1. Listing customs
- ✓ 2. Studying society
- ✗ 3. Recording events
- ✗ 4. Preserving myths

Question ID : **4410091541804**
Option 1 ID : **4410096090385**
Option 2 ID : **4410096090384**
Option 3 ID : **4410096090383**
Option 4 ID : **4410096090386**

Section : **Discipline2**

Q.1 **Which of the following is not correct regarding the importance of the lesson plan?**

Ans
- ✗ 1. It enables teachers to utilise the available time properly
- ✗ 2. It gives confidence to teachers during teaching
- ✓ 3. It makes classroom activities rigid and forced upon
- ✗ 4. It makes teaching systematic and well organised

Question ID : **4410091546686**
Option 1 ID : **4410096109624**
Option 2 ID : **4410096109626**
Option 3 ID : **4410096109625**
Option 4 ID : **4410096109623**

QuickSarkari.com | WhatsApp Channel | Telegram: t.me/quick_sarkari

Q.2 **The use of multiple sources for comprehensive assessment helps teachers to:**

Ans
✗ 1. Reduce the need for varied evidence of student performance

✗ 2. Limit assessment to one fixed method of data collection

✗ 3. Depend only on a single test for evaluating achievement

✓ 4. Gain a fuller picture of student learning and progress

Question ID : **4410091546782**
Option 1 ID : **4410096109998**
Option 2 ID : **4410096109999**
Option 3 ID : **4410096109997**
Option 4 ID : **4410096109996**

Q.3 **Who is considered an iconic cultural figure discussed for understanding the self in Perspectives in Education?**

Ans
✓ 1. Mahatma Gandhi

✗ 2. Jawaharlal Nehru

✗ 3. B. R. Ambedkar

✗ 4. Rabindranath Tagore

Question ID : **4410091629091**
Option 1 ID : **4410096434491**
Option 2 ID : **4410096434493**
Option 3 ID : **4410096434492**
Option 4 ID : **4410096434490**

Q.4 **Which among the following is NOT the role of a teacher in bringing about change in the society?**

Ans
✗ 1. Teachers are powerful elements in the society who have brought positive change through education

✗ 2. A teacher is considered as an agent of social change

✓ 3. Teachers can solve all the social problems existing in the Indian society on their own

✗ 4. A teacher acts as a role model for change and modernity in the society

Question ID : **4410091571983**
Option 1 ID : **4410096208965**
Option 2 ID : **4410096208963**
Option 3 ID : **4410096208966**
Option 4 ID : **4410096208964**

Q.5 **What is a key difference between language learning and language acquisition?**

Ans
✗ 1. Language learning happens naturally, while acquisition is formal

✗ 2. Language learning is only for children, acquisition is for adults

✗ 3. Language acquisition is based on imitation, learning is not

✓ 4. Acquisition is subconscious; learning is conscious

Question ID : **4410091603925**
Option 1 ID : **4410096334888**
Option 2 ID : **4410096334890**
Option 3 ID : **4410096334891**
Option 4 ID : **4410096334889**

QuickSarkari.com | WhatsApp Channel | Telegram: t.me/quick_sarkari

Q.6 **Which maxim of teaching emphasizes that learners should first be given real, tangible experiences before introducing abstract ideas?**

Ans
- ✗ 1. Psychological to logical
- ✗ 2. Particular to general
- ✗ 3. Known to unknown
- ✓ 4. Concrete to abstract

Question ID : **4410091576579**
Option 1 ID : **4410096227129**
Option 2 ID : **4410096227130**
Option 3 ID : **4410096227127**
Option 4 ID : **4410096227128**

Q.7 **Which step in lesson planning ensures that teaching is focused and directed towards clear outcomes?**

Ans
- ✓ 1. Stating specific objectives of the lesson
- ✗ 2. Grouping students by ability
- ✗ 3. Scheduling time for breaks
- ✗ 4. Listing available teaching aids

Question ID : **4410091644879**
Option 1 ID : **4410096496050**
Option 2 ID : **4410096496052**
Option 3 ID : **4410096496053**
Option 4 ID : **4410096496051**

Q.8 **In evaluating curriculum types, which principle best ensures that curriculum content remains relevant, inclusive, and adaptable to societal changes?**

Ans
- ✗ 1. Continuity Principle
- ✗ 2. Integration Principle
- ✓ 3. Flexibility Principle
- ✗ 4. Scope Principle

Question ID : **4410091624674**
Option 1 ID : **4410096417227**
Option 2 ID : **4410096417230**
Option 3 ID : **4410096417228**
Option 4 ID : **4410096417229**

Q.9 **What does the concept 'rule-governed system' imply about language?**

Ans
- ✗ 1. Language is learned without structure.
- ✓ 2. Language follows grammatical structures.
- ✗ 3. Language changes randomly.
- ✗ 4. Language is only spoken.

Question ID : **4410091608362**
Option 1 ID : **4410096352366**
Option 2 ID : **4410096352365**
Option 3 ID : **4410096352364**
Option 4 ID : **4410096352367**

Q.10 **A teacher observes that children who use multiple languages at home demonstrate different patterns of early literacy acquisition compared to their monolingual peers. What is the primary reason for this difference, considering the nature of multilingualism?**

Ans
- ✗ 1. Using more than one language makes children mix up reading skills
- ✗ 2. Children copy literacy habits from friends at school
- ✗ 3. Hearing less of one language makes literacy develop faster
- ✓ 4. Skills from one language can help children learn literacy in another language

Question ID : **4410091629754**
Option 1 ID : **4410096437102**
Option 2 ID : **4410096437103**
Option 3 ID : **4410096437105**
Option 4 ID : **4410096437104**

Q.11 **Vocabulary growth during pre-school years is largely supported by:**

Ans
- ✓ 1. Rich exposure to spoken language
- ✗ 2. Grammar-focused instruction
- ✗ 3. Isolated drill activities
- ✗ 4. Early memorization of written words

Question ID : **4410091579938**
Option 1 ID : **4410096241065**
Option 2 ID : **4410096241068**
Option 3 ID : **4410096241067**
Option 4 ID : **4410096241066**

Q.12 **While discussing the process for classroom celebration, a facilitator emphasizes selecting an icon based on regional resonance. What is the main advantage of this approach?**

Ans
- ✗ 1. Ensuring only famous icons are celebrated nationwide
- ✓ 2. Enhancing student connection by relating to local cultural heritage
- ✗ 3. Focusing solely on textbook examples for activities
- ✗ 4. Limiting celebration to urban educational settings

Question ID : **4410091606235**
Option 1 ID : **4410096343965**
Option 2 ID : **4410096343964**
Option 3 ID : **4410096343966**
Option 4 ID : **4410096343967**

QuickSarkari

Q.13 **Observation becomes educationally meaningful when it is followed by:**

Ans
✗ 1. Comparison
✗ 2. Instruction
✗ 3. Evaluation
✓ 4. Reflection

Question ID : **4410091635653**
Option 1 ID : **4410096460619**
Option 2 ID : **4410096460622**
Option 3 ID : **4410096460620**
Option 4 ID : **4410096460621**

Q.14 **How does understanding others through observation contribute to self-understanding?**

Ans
✓ 1. It enhances your understanding of yourself.
✗ 2. It leads to isolation.
✗ 3. It eliminates the need for self-reflection.
✗ 4. It decreases self-awareness.

Question ID : **4410091652766**
Option 1 ID : **4410096526661**
Option 2 ID : **4410096526663**
Option 3 ID : **4410096526664**
Option 4 ID : **4410096526662**

Q.15 **What is the key aspect of multilingualism in education?**

Ans
✗ 1. The use of languages only for reading and writing without speaking or listening
✓ 2. The ability to use and understand multiple languages in different contexts effectively
✗ 3. The need to learn only one language while ignoring all other languages entirely
✗ 4. The replacement of local languages completely with a single global language

Question ID : **4410091542418**
Option 1 ID : **4410096092777**
Option 2 ID : **4410096092775**
Option 3 ID : **4410096092776**
Option 4 ID : **4410096092778**

Q.16 **If a community celebrates an iconic figure annually, what is a likely outcome for the younger generation?**

Ans
✗ 1. They see celebrations only as holidays with no meaning
✗ 2. They become uninterested in the figure's legacy
✗ 3. They ignore the values the figure represented
✓ 4. They develop a sense of identity

Question ID : **4410091692487**
Option 1 ID : **4410096676030**
Option 2 ID : **4410096676029**
Option 3 ID : **4410096676031**
Option 4 ID : **4410096676028**

Q.17 What is the main goal of teaching mathematics at the primary school level?

Ans
✗ 1. To make children complete worksheets quickly
✗ 2. To prepare students for high school exams
✗ 3. To ensure students memorize all formulas
✓ 4. To help children develop problem-solving skills

Question ID : **4410091694997**
Option 1 ID : **4410096686060**
Option 2 ID : **4410096686059**
Option 3 ID : **4410096686058**
Option 4 ID : **4410096686057**

Q.18 Which of the following is not correct related to the content of Maxims?

Ans
✗ 1. Analysis to synthesis
✗ 2. Simple to complex
✓ 3. Rational to empirical
✗ 4. Empirical to rational

Question ID : **4410091546676**
Option 1 ID : **4410096109584**
Option 2 ID : **4410096109583**
Option 3 ID : **4410096109585**
Option 4 ID : **4410096109586**

Q.19 How does a constructivist approach to pedagogy differ from traditional lecture-based methods?

Ans
✓ 1. It emphasizes learner engagement and knowledge construction.
✗ 2. It limits opportunities for practical application of the theoretical concepts.
✗ 3. It discourages collaborative learning among students.
✗ 4. It relies solely on teacher's understanding and explanation of the topic.

Question ID : **4410091678968**
Option 1 ID : **4410096624081**
Option 2 ID : **4410096624084**
Option 3 ID : **4410096624083**
Option 4 ID : **4410096624082**

QuickSarkari.com | WhatsApp Channel | Telegram: t.me/quick_sarkari

Q.20 **A teacher notices that students from similar backgrounds tend to form their own groups, excluding others, leading to some students feeling anxious and disengaged. Which group behavior patterns are most responsible for this situation?**

Ans
✗ 1. Norm formation and leadership patterns
✓ 2. Cliques and competitive patterns
✗ 3. Conformity and social loafing
✗ 4. Cooperative and emotional patterns

Question ID : **4410091683196**
Option 1 ID : **4410096639817**
Option 2 ID : **4410096639814**
Option 3 ID : **4410096639816**
Option 4 ID : **4410096639815**

Section : **Discipline3**

Q.1 **When students use different-sized cubes to measure the same box, which problem will occur?**

Ans
✗ 1. The cubes will change shape
✗ 2. The box will look bigger
✓ 3. The answers will be different for each student
✗ 4. The work will become faster

Question ID : **4410091608582**
Option 1 ID : **4410096353251**
Option 2 ID : **4410096353249**
Option 3 ID : **4410096353248**
Option 4 ID : **4410096353250**

Q.2 **What is a key skill for developing a vision of education?**

Ans
✗ 1. Repetition
✗ 2. Imitation
✓ 3. Reflective thinking
✗ 4. Memorization

Question ID : **4410091631419**
Option 1 ID : **4410096443899**
Option 2 ID : **4410096443898**
Option 3 ID : **4410096443896**
Option 4 ID : **4410096443897**

QuickSarkari.com | WhatsApp Channel | Telegram: t.me/quick_sarkari

Q.3 **Which of the following is a characteristic described by students as making a teacher effective?**

Ans
- ✔ 1. Came to class prepared
- ✘ 2. Published academic articles
- ✘ 3. Attended prestigious universities
- ✘ 4. Had strict classroom rules

Question ID : **4410091604342**
Option 1 ID : **4410096336542**
Option 2 ID : **4410096336543**
Option 3 ID : **4410096336545**
Option 4 ID : **4410096336544**

Q.4 **Which psychological skill is most essential for a good facilitator to understand learners' needs?**

Ans
- ✔ 1. Active listening and empathy
- ✘ 2. Fast content delivery skills
- ✘ 3. Strict rule enforcement only
- ✘ 4. Mechanical repetition methods

Question ID : **4410091604510**
Option 1 ID : **4410096337212**
Option 2 ID : **4410096337214**
Option 3 ID : **4410096337213**
Option 4 ID : **4410096337215**

Q.5 **Effective school leaders promote quality education by:**

Ans
- ✔ 1. Supporting teachers and student learning
- ✘ 2. Centralising all decision making
- ✘ 3. Monitoring only examination results
- ✘ 4. Avoiding shared responsibility

Question ID : **4410091602298**
Option 1 ID : **4410096328767**
Option 2 ID : **4410096328768**
Option 3 ID : **4410096328766**
Option 4 ID : **4410096328769**

QuickSarkari.com | WhatsApp Channel | Telegram: t.me/quick_sarkari

Q.6 During a school event, a teacher encourages students to engage in discussions about constitutional values and societal issues. How does this support the vision of education promoted by NEP 2020?

Ans
✗ 1. It restricts students to passive listening without engagement.

✓ 2. It fosters holistic development and critical thinking through active participation.

✗ 3. It emphasizes rote memorization of historical facts for exam purposes.

✗ 4. It discourages open dialogue about societal challenges in the classroom.

Question ID : **4410091607570**
Option 1 ID : **4410096349250**
Option 2 ID : **4410096349248**
Option 3 ID : **4410096349249**
Option 4 ID : **4410096349251**

Q.7 Which type of play is most effective in fostering children's ability to understand social roles and negotiate rules within a group setting?

Ans
✗ 1. Functional play

✓ 2. Sociodramatic play

✗ 3. Constructive play

✗ 4. Solitary play

Question ID : **4410091609848**
Option 1 ID : **4410096358306**
Option 2 ID : **4410096358304**
Option 3 ID : **4410096358305**
Option 4 ID : **4410096358307**

Q.8 In the context of classical conditioning, what role does a bell play when it is paired with food to make a dog salivate?

Ans
✗ 1. Conditioned response

✗ 2. Neutral stimulus

✗ 3. Unconditioned stimulus

✓ 4. Conditioned stimulus

Question ID : **4410091679079**
Option 1 ID : **4410096624524**
Option 2 ID : **4410096624523**
Option 3 ID : **4410096624522**
Option 4 ID : **4410096624521**

QuickSarkari

Q.9 **Which of the following defence mechanisms is MOST likely to manifest as attributing one's own unacceptable impulses onto another person?**

Ans
✗ 1. Isolation of affect
✓ 2. Projection
✗ 3. Displacement
✗ 4. Reaction formation

Question ID : **4410091572417**
Option 1 ID : **4410096210627**
Option 2 ID : **4410096210624**
Option 3 ID : **4410096210625**
Option 4 ID : **4410096210626**

Q.10 **According to the humanistic philosophy of education, which core emotional quality is essential for a teacher to function successfully as a learning facilitator?**

Ans
✗ 1. Organizational Clarity
✗ 2. Subject Mastery
✓ 3. Genuine Empathy
✗ 4. Strict Discipline

Question ID : **4410091550800**
Option 1 ID : **4410096125486**
Option 2 ID : **4410096125483**
Option 3 ID : **4410096125484**
Option 4 ID : **4410096125485**

Q.11 **Which psychological attribute empowers a teacher-facilitator to be consistently judicious and objective while managing diverse student needs?**

Ans
✗ 1. Classroom management
✓ 2. Cognitive clarity
✗ 3. Genuine empathy
✗ 4. Academic proficiency

Question ID : **4410091550804**
Option 1 ID : **4410096125502**
Option 2 ID : **4410096125501**
Option 3 ID : **4410096125500**
Option 4 ID : **4410096125499**

QuickSarkari.com | WhatsApp Channel | Telegram: t.me/quick_sarkari

Q.12 A teacher asks students to listen to an audio story and later identify new words they understood but have not yet used in speech or writing. Which vocabulary type are the students primarily engaging with?

Ans
✗ 1. Morphological knowledge of word roots
✓ 2. Passive vocabulary through receptive listening activities
✗ 3. Metalinguistic awareness through translation
✗ 4. Active vocabulary via productive tasks

Question ID : **4410091613389**
Option 1 ID : **4410096372393**
Option 2 ID : **4410096372390**
Option 3 ID : **4410096372392**
Option 4 ID : **4410096372391**

Q.13 During the sensorimotor stage, which of the following is a key cognitive ability?

Ans
✓ 1. Object permanence and linking numbers to objects
✗ 2. Abstract reasoning and hypothesis testing
✗ 3. Symbolic thought and overgeneralization of language
✗ 4. Organizing objects by categories and logical order

Question ID : **4410091572395**
Option 1 ID : **4410096210565**
Option 2 ID : **4410096210564**
Option 3 ID : **4410096210566**
Option 4 ID : **4410096210567**

Q.14 A student who can accurately use a wide range of words while speaking and writing is demonstrating which aspect of vocabulary knowledge, considering both usage and understanding?

Ans
✗ 1. Receptive vocabulary
✓ 2. Active vocabulary
✗ 3. Passive vocabulary
✗ 4. Contextual vocabulary

Question ID : **4410091679062**
Option 1 ID : **4410096624456**
Option 2 ID : **4410096624453**
Option 3 ID : **4410096624454**
Option 4 ID : **4410096624455**

QuickSarkari.com | WhatsApp Channel | Telegram: t.me/quick_sarkari

Q.15 **Which of the following sentences uses correct subject-verb agreement?**

Ans
✗ 1. They enjoys the movie every weekend
✗ 2. They enjoy the movie every weekends
✓ 3. They enjoy the movie every weekend
✗ 4. They enjoying the movie every weekend

Question ID : **4410091621220**
Option 1 ID : **4410096403686**
Option 2 ID : **4410096403688**
Option 3 ID : **4410096403687**
Option 4 ID : **4410096403685**

Q.16 **During a math class, a student confidently explains the concept of 'pattern' and uses it correctly while solving problems. What does this demonstrate about the student's vocabulary knowledge?**

Ans
✗ 1. The student is unaware of the term 'pattern'.
✗ 2. The student has only passive vocabulary for 'pattern'.
✓ 3. The term 'pattern' is part of their active vocabulary.
✗ 4. The student is guessing the term's meaning.

Question ID : **4410091683614**
Option 1 ID : **4410096641384**
Option 2 ID : **4410096641382**
Option 3 ID : **4410096641383**
Option 4 ID : **4410096641385**

Q.17 **An external team reviews teaching, student records, teacher surveys, and student interviews to judge a school's performance. Which method of measuring school effectiveness is this?**

Ans
✗ 1. Measuring only the school's physical facilities
✗ 2. Relying solely on teacher attendance data
✗ 3. Performance-based evaluation
✓ 4. Multi-dimensional evaluation

Question ID : **4410091548502**
Option 1 ID : **4410096116704**
Option 2 ID : **4410096116707**
Option 3 ID : **4410096116706**
Option 4 ID : **4410096116705**

QuickSarkari.com | WhatsApp Channel | Telegram: t.me/quick_sarkari

Q.18 How can a teacher apply both trial and error and classical conditioning to classroom learning?

Ans
✗ 1. Correcting errors without explanation or feedback
✗ 2. Using only repetition without hands-on practice
✓ 3. Allowing students to try solutions with positive feedback
✗ 4. Focusing only on theory without student action

Question ID : **4410091638600**
Option 1 ID : **4410096472079**
Option 2 ID : **4410096472080**
Option 3 ID : **4410096472078**
Option 4 ID : **4410096472081**

Q.19 Which teaching method best integrates the concept of measurement units with real-life examples in mathematics lessons?

Ans
✗ 1. Relying on oral explanations without activities
✗ 2. Using only textbook exercises for measurement
✓ 3. Using hands-on activities with standard units
✗ 4. Focusing on memorization of measurement facts

Question ID : **4410091638590**
Option 1 ID : **4410096472041**
Option 2 ID : **4410096472038**
Option 3 ID : **4410096472039**
Option 4 ID : **4410096472040**

Q.20 Which element is most important when conceiving a school from scratch?

Ans
✗ 1. Purchasing sports equipment
✓ 2. Defining core philosophy and goals
✗ 3. Deciding school uniform colors
✗ 4. Painting classrooms

Question ID : **4410091619496**
Option 1 ID : **4410096396841**
Option 2 ID : **4410096396842**
Option 3 ID : **4410096396843**
Option 4 ID : **4410096396840**

Section : **Discipline4**

QuickSarkari.com | WhatsApp Channel | Telegram: t.me/quick_sarkari

Q.1 A teacher uses peer conferences where students discuss each other's writing using checklists that focus on ideas and organization. Which key skill is primarily developed through this method?

Ans
✗ 1. Silent reading fluency
✗ 2. Memorization of grammar rules
✗ 3. Handwriting speed
✓ 4. Critical thinking and evaluation

Question ID : **4410091617652**
Option 1 ID : **4410096389502**
Option 2 ID : **4410096389501**
Option 3 ID : **4410096389500**
Option 4 ID : **4410096389499**

Q.2 What is the main focus of the Grammar Translation method?

Ans
✗ 1. Pronunciation
✗ 2. Phonetics
✗ 3. Vocabulary
✓ 4. Grammar rules

Question ID : **4410091634342**
Option 1 ID : **4410096455454**
Option 2 ID : **4410096455453**
Option 3 ID : **4410096455452**
Option 4 ID : **4410096455451**

Q.3 You are assigned to design a plan to improve school effectiveness in a low-performing district. Which initial step is most appropriate based on measurement principles?

Ans
✗ 1. Requiring teachers to attend mandatory workshops monthly.
✓ 2. Collecting and analyzing baseline data on current student outcomes.
✗ 3. Reducing the number of school days to ease student workload.
✗ 4. Implementing new technology in all classrooms immediately.

Question ID : **4410091642806**
Option 1 ID : **4410096488119**
Option 2 ID : **4410096488117**
Option 3 ID : **4410096488120**
Option 4 ID : **4410096488118**

QuickSarkari.com | WhatsApp Channel | Telegram: t.me/quick_sarkari

Q.4 A school is reviewing passages in science and social science textbooks. To promote effective language learning, what should teachers look for?

Ans
1. Whether only one register is used
2. Whether all terms are highly technical
3. Whether language is learner-friendly
4. Whether passages are the longest possible

Question ID : **4410091604780**
Option 1 ID : **4410096338287**
Option 2 ID : **4410096338286**
Option 3 ID : **4410096338284**
Option 4 ID : **4410096338285**

Q.5 A teacher wants to promote critical thinking using textbooks in an optional pedagogical course. Which approach most effectively uses the textbook's role in the teaching-learning process?

Ans
1. Discussing key definitions in context with examples
2. Summarizing chapters and debating main ideas
3. Using case studies for analysis and reflection
4. Applying exercises to solve real-world problems

Question ID : **4410091623998**
Option 1 ID : **4410096414573**
Option 2 ID : **4410096414574**
Option 3 ID : **4410096414572**
Option 4 ID : **4410096414575**

Q.6 The primary pedagogical purpose of scaling down the class size (to 5–10 students) and lesson duration (to approximately 6 minutes) in the Microteaching technique is to achieve:

Ans
1. Detailed content coverage
2. Administrative efficiency
3. Simplification of complexity
4. Immediate data analysis

Question ID : **4410091558856**
Option 1 ID : **4410096157812**
Option 2 ID : **4410096157809**
Option 3 ID : **4410096157811**
Option 4 ID : **4410096157810**

QuickSarkari.com | WhatsApp Channel | Telegram: t.me/quick_sarkari

Q.7 **A teacher wishes to model the water cycle for her class using minimal resources. Which approach best demonstrates the use of low-cost materials as described in the context?**

Ans
✗ 1. Distributing printed diagrams of the water cycle for students to memorize
✓ 2. Using a plastic bottle and some water to create a simple water cycle model
✗ 3. Renting an electronic water cycle simulator from a nearby science center
✗ 4. Assigning students to write an essay about the water cycle without any demonstration

Question ID : **4410091617228**
Option 1 ID : **4410096387813**
Option 2 ID : **4410096387811**
Option 3 ID : **4410096387812**
Option 4 ID : **4410096387814**

Q.8 **A teacher uses bottle caps and stones to teach counting. These materials are:**

Ans
✓ 1. Locally available concrete learning resources
✗ 2. Improvised symbolic instructional representations
✗ 3. Abstract numerical reinforcement tools
✗ 4. Standardized manipulative assessment devices

Question ID : **4410091570033**
Option 1 ID : **4410096201133**
Option 2 ID : **4410096201134**
Option 3 ID : **4410096201135**
Option 4 ID : **4410096201136**

Q.9 **The combined influence of Liberalization, Privatization, Globalization dilutes educational aims via what specific quality erosion process?**

Ans
✗ 1. Broadened access without commercialization risks
✓ 2. Fragmentation compartmentalizing knowledge silos
✗ 3. Enhanced social ethos integration universally
✗ 4. Comprehensive unification of all learning domains

Question ID : **4410091564555**
Option 1 ID : **4410096179797**
Option 2 ID : **4410096179800**
Option 3 ID : **4410096179798**
Option 4 ID : **4410096179799**

Q.10 **What does ICT stand for in English language teaching?**

Ans
✗ 1. Integrated Curriculum Theory
✓ 2. Information and Communication Technology
✗ 3. Instructional Classroom Tool
✗ 4. Interactive Communication Training

Question ID : **4410091636094**
Option 1 ID : **4410096462340**
Option 2 ID : **4410096462339**
Option 3 ID : **4410096462337**
Option 4 ID : **4410096462338**

QuickSarkari.com | WhatsApp Channel | Telegram: t.me/quick_sarkari

Q.11 The National Policy on Education (1986) highlights the need to nurture what societal value from an early age across all sections of society?

Ans
✗ 1. A sense of competition
✗ 2. A drive for economic growth
✗ 3. A focus on technology
✓ 4. A consciousness of the environment

Question ID : **4410091602499**
Option 1 ID : **4410096329572**
Option 2 ID : **4410096329573**
Option 3 ID : **4410096329571**
Option 4 ID : **4410096329570**

Q.12 A policymaker in India is evaluating the rise of private, for-profit colleges since 1991. She notices many such colleges offer quick employment-oriented courses but also charge high fees. Based on the LPG reforms' impact, which underlying challenge is most relevant for her to address to ensure equitable educational access?

Ans
✗ 1. Cultural homogenization from global curricula
✗ 2. Decline in research focus in institutions
✗ 3. Increased fiscal deficit from public spending
✓ 4. Widening inequality due to costly fees

Question ID : **4410091618644**
Option 1 ID : **4410096393447**
Option 2 ID : **4410096393450**
Option 3 ID : **4410096393449**
Option 4 ID : **4410096393448**

Q.13 Students construct simple compost bins to observe the decomposition of plant material over time. Which curriculum concept and approach are primarily being utilized?

Ans
✓ 1. Plants; hands-on inquiry and observation
✗ 2. Water; classification of sources
✗ 3. Shelter; mapping house designs
✗ 4. Travel; predicting migration patterns

Question ID : **4410091633046**
Option 1 ID : **4410096450302**
Option 2 ID : **4410096450303**
Option 3 ID : **4410096450304**
Option 4 ID : **4410096450305**

Q.14 Which effect refers to students influencing the practices of the school leader without prior influence from the leader?

Ans
✗ 1. Mediated effect
✗ 2. Indirect effect
✓ 3. Inverse effect
✗ 4. Direct effect

Question ID : **4410091609145**
Option 1 ID : **4410096355498**
Option 2 ID : **4410096355497**
Option 3 ID : **4410096355499**
Option 4 ID : **4410096355496**

Q.15 What is the primary purpose of lesson planning in pedagogy?

Ans
✗ 1. To create textbooks
✓ 2. To organize teaching activities
✗ 3. To supervise teachers
✗ 4. To assess students

Question ID : **4410091636436**
Option 1 ID : **4410096463643**
Option 2 ID : **4410096463641**
Option 3 ID : **4410096463644**
Option 4 ID : **4410096463642**

Q.16 Which of the following is a primary principle of lesson planning?

Ans
✗ 1. Ignoring student needs
✗ 2. Focusing only on assessment
✓ 3. Clarity of objectives
✗ 4. Random activity selection

Question ID : **4410091687449**
Option 1 ID : **4410096656584**
Option 2 ID : **4410096656585**
Option 3 ID : **4410096656582**
Option 4 ID : **4410096656583**

Q.17 Which of the following best describes the goal of equality in social science education?

Ans
✗ 1. Encouraging competition among students
✗ 2. Focusing only on academic achievement
✓ 3. Ensuring everyone has the same opportunities
✗ 4. Giving special treatment to certain groups

Question ID : **4410091627634**
Option 1 ID : **4410096428747**
Option 2 ID : **4410096428748**
Option 3 ID : **4410096428746**
Option 4 ID : **4410096428745**

QuickSarkari.com | WhatsApp Channel | Telegram: t.me/quick_sarkari

Q.18 As a Director of Primary Education, managing a shift in school culture, which action aligns with the integration method of conflict resolution when addressing teacher resistance?

Ans
✗ 1. Offer contingent rewards.
✓ 2. Facilitate a circular response.
✗ 3. Impose bureaucratic rules.
✗ 4. Seek a middle-ground compromise.

Question ID : **4410091635129**
Option 1 ID : **4410096458557**
Option 2 ID : **4410096458555**
Option 3 ID : **4410096458556**
Option 4 ID : **4410096458558**

Q.19 How does education influence economic development in society?

Ans
✗ 1. By eliminating the need for vocational and technical training
✓ 2. By developing skilled human resources and employability
✗ 3. By concentrating wealth and opportunities among elites
✗ 4. By separating education from labour market demands

Question ID : **4410091603095**
Option 1 ID : **4410096331576**
Option 2 ID : **4410096331577**
Option 3 ID : **4410096331578**
Option 4 ID : **4410096331579**

Q.20 Which key criticism of the Grammar Translation Method highlights its effect on communicative competence in English learners?

Ans
✗ 1. It relies on repetitive written translations only.
✗ 2. It uses traditional literary texts for teaching.
✗ 3. It focuses mainly on grammatical accuracy tests.
✓ 4. It limits speaking and listening skills development.

Question ID : **4410091659717**
Option 1 ID : **4410096552990**
Option 2 ID : **4410096552992**
Option 3 ID : **4410096552991**
Option 4 ID : **4410096552989**

Section : **Discipline5**

QuickSarkari.com | WhatsApp Channel | Telegram: t.me/quick_sarkari

Q.1 **Imagine a classroom where science kits are not used. What is a likely consequence for students' learning?**

Ans
✗ 1. Students will develop better scientific skills

✗ 2. Increased dependence on laboratory experiments

✗ 3. Faster completion of the science syllabus

✓ 4. Reduced hands-on understanding of scientific concepts

Question ID : **4410091670060**
Option 1 ID : **4410096591069**
Option 2 ID : **4410096591070**
Option 3 ID : **4410096591071**
Option 4 ID : **4410096591068**

Q.2 **The pedagogical shift in teaching Mathematics moves away from the traditional model focusing on:**

Ans
✗ 1. Inductive reasoning

✗ 2. Problem solving

✗ 3. Conceptual knowledge

✓ 4. Rote learning and drill

Question ID : **4410091551399**
Option 1 ID : **4410096127960**
Option 2 ID : **4410096127962**
Option 3 ID : **4410096127959**
Option 4 ID : **4410096127961**

Q.3 **A child demonstrates delayed speech development and struggles with social interactions. Which assessment tool is most suitable for identifying potential developmental disabilities in this case?**

Ans
✗ 1. Using a general intelligence test exclusively

✗ 2. Conducting a physical fitness evaluation alone

✓ 3. Administering a standardized developmental screening checklist

✗ 4. Evaluating specific subject performance only

Question ID : **4410091617411**
Option 1 ID : **4410096388543**
Option 2 ID : **4410096388545**
Option 3 ID : **4410096388546**
Option 4 ID : **4410096388544**

QuickSarkari.com | WhatsApp Channel | Telegram: t.me/quick_sarkari

Q.4 **Which method replaces IQ-achievement gap criteria by assessing learner difficulty based on instructional failure?**

Ans
1. Curricular assessment
2. Syndrome analysis
3. Response to intervention
4. Minimal brain damage

Question ID : **4410091560389**
Option 1 ID : **4410096163699**
Option 2 ID : **4410096163698**
Option 3 ID : **4410096163700**
Option 4 ID : **4410096163701**

Q.5 **Which of the following is not an importance of reading skills?**

Ans
1. Encouraging analytical and reflective thinking processes
2. Reducing the ability to access knowledge and information
3. Facilitating the interpretation of written materials effectively
4. Helping learners engage with a variety of texts meaningfully

Question ID : **4410091548258**
Option 1 ID : **4410096115748**
Option 2 ID : **4410096115747**
Option 3 ID : **4410096115745**
Option 4 ID : **4410096115746**

Q.6 **A school aims to revise its policies to support transgender and non-binary students. Which policy change would most effectively foster an inclusive environment?**

Ans
1. Provide separately designed restrooms and uniforms for transgender students only
2. Providing counseling while retaining existing uniform and restroom restrictions
3. Allowing students to choose uniforms and restroom as per their gender identity
4. Mandating parental approval for any student-initiated identity-related adjustments

Question ID : **4410091617364**
Option 1 ID : **4410096388357**
Option 2 ID : **4410096388358**
Option 3 ID : **4410096388356**
Option 4 ID : **4410096388355**

QuickSarkari.com | WhatsApp Channel | Telegram: t.me/quick_sarkari

Q.7 **A school in India refuses to admit children from a particular minority community. What form of exclusion is this?**

Ans
✗ 1. Economic exclusion
✗ 2. Physical exclusion
✗ 3. Academic exclusion
✓ 4. Social exclusion

Question ID : **4410091687996**
Option 1 ID : **4410096658772**
Option 2 ID : **4410096658771**
Option 3 ID : **4410096658773**
Option 4 ID : **4410096658770**

Q.8 **A teacher encourages students to ask questions about why it rains more in some seasons. What does this teaching strategy highlight?**

Ans
✗ 1. Science as unchanging facts
✗ 2. Science as guessing answers
✓ 3. Science as inquiry driven knowledge
✗ 4. Science as only memorizing textbooks

Question ID : **4410091693006**
Option 1 ID : **4410096678133**
Option 2 ID : **4410096678136**
Option 3 ID : **4410096678134**
Option 4 ID : **4410096678135**

Q.9 **A teacher evaluates students through oral discussion, written tasks, and observation notes. This represents:**

Ans
✗ 1. A non-evaluative classroom
✗ 2. A test-only approach
✓ 3. Multiple assessment techniques
✗ 4. A single-format assessment

Question ID : **4410091570229**
Option 1 ID : **4410096201911**
Option 2 ID : **4410096201912**
Option 3 ID : **4410096201910**
Option 4 ID : **4410096201909**

Q.10 **Recreational mathematics supports joyful learning because it:**

Ans
✗ 1. Limits learner creativity and imagination
✗ 2. Increases dependence on rote memorisation methods
✗ 3. Promotes rigid adherence to formal algorithms
✓ 4. Reduces fear and anxiety associated with mathematics

Question ID : **4410091588356**
Option 1 ID : **4410096274154**
Option 2 ID : **4410096274151**
Option 3 ID : **4410096274152**
Option 4 ID : **4410096274153**

QuickSarkari.com | WhatsApp Channel | Telegram: t.me/quick_sarkari

Q.11 If a school wants to improve its English program by systematically collecting information, making inferences, and deciding on modifications, which process is being followed?

Ans
✔ 1. Program evaluation
✘ 2. Student assessment
✘ 3. Teacher recruitment
✘ 4. Lesson planning

Question ID : **4410091606045**
Option 1 ID : **4410096343212**
Option 2 ID : **4410096343214**
Option 3 ID : **4410096343215**
Option 4 ID : **4410096343213**

Q.12 Disability identification in education primarily refers to the process of:

Ans
✘ 1. Separating learners into special schools
✘ 2. Determining intelligence through single tests
✔ 3. Recognising functional difficulties affecting learning
✘ 4. Labeling learners based only on medical diagnoses

Question ID : **4410091589285**
Option 1 ID : **4410096277733**
Option 2 ID : **4410096277735**
Option 3 ID : **4410096277734**
Option 4 ID : **4410096277732**

Q.13 Inclusive education views diversity among learners mainly as a:

Ans
✘ 1. Classroom difficulty
✘ 2. Curriculum limitation
✔ 3. Learning opportunity
✘ 4. Administrative burden

Question ID : **4410091704054**
Option 1 ID : **4410096721291**
Option 2 ID : **4410096721293**
Option 3 ID : **4410096721290**
Option 4 ID : **4410096721292**

QuickSarkari.com | WhatsApp Channel | Telegram: t.me/quick_sarkari

Q.14 **Suppose you are designing a mathematics curriculum for graduate students focusing on numbers. Which approach best fosters deep understanding of the hierarchy and relationships among natural, integer, rational, real, and complex numbers?**

Ans
✗ 1. Exploring historical context of numbers
✗ 2. Solving real-life number set problems
✗ 3. Analyzing examples and counterexamples
✓ 4. Practicing patterns and relationships

Question ID : **4410091626510**
Option 1 ID : **4410096424412**
Option 2 ID : **4410096424413**
Option 3 ID : **4410096424415**
Option 4 ID : **4410096424414**

Q.15 **Which objective of an Eco-Club relates most directly to developing positive attitudes and ethics toward the environment?**

Ans
✗ 1. Improving mathematical skills through environmental statistics
✓ 2. Creating awareness and sensitivity about various environmental issues
✗ 3. Learning foreign languages to communicate global issues
✗ 4. Practicing debating techniques on current events

Question ID : **4410091662896**
Option 1 ID : **4410096564890**
Option 2 ID : **4410096564889**
Option 3 ID : **4410096564892**
Option 4 ID : **4410096564891**

Q.16 **Which set of teaching aids would be most effective for a language lesson on storytelling in a diverse classroom?**

Ans
✗ 1. Geographical maps, compasses, and weather journals
✗ 2. Mathematical charts, number blocks, and measuring tapes
✗ 3. Scientific apparatus, lab coats, and periodic tables
✓ 4. Audio recordings, picture cards, and role-play props

Question ID : **4410091641194**
Option 1 ID : **4410096481932**
Option 2 ID : **4410096481930**
Option 3 ID : **4410096481931**
Option 4 ID : **4410096481929**

QuickSarkari.com | WhatsApp Channel | Telegram: t.me/quick_sarkari

Q.17 During a professional development workshop, educators are debating the statement: 'Scientific concepts are absolute and unchanging.' As a science education specialist, which argument would you use to clarify the nature of scientific concepts?

Ans
✗ 1. Scientific concepts are created to fit existing technology
✗ 2. Scientific concepts are personal beliefs of scientists
✗ 3. Scientific concepts are universally agreed and static
✓ 4. Scientific concepts evolve with new evidence and reinterpretation

Question ID : **4410091633876**
Option 1 ID : **4410096453596**
Option 2 ID : **4410096453595**
Option 3 ID : **4410096453594**
Option 4 ID : **4410096453597**

Q.18 Which term describes numbers that can be written as fractions?

Ans
✗ 1. Natural numbers
✗ 2. Whole numbers
✓ 3. Rational numbers
✗ 4. Irrational numbers

Question ID : **4410091635711**
Option 1 ID : **4410096460831**
Option 2 ID : **4410096460833**
Option 3 ID : **4410096460832**
Option 4 ID : **4410096460834**

Q.19 Which learning disability affects a person's ability to understand numbers and learn math facts?

Ans
✓ 1. Dyscalculia
✗ 2. Dyspraxia
✗ 3. Dysgraphia
✗ 4. Dyslexia

Question ID : **4410091635654**
Option 1 ID : **4410096460623**
Option 2 ID : **4410096460625**
Option 3 ID : **4410096460626**
Option 4 ID : **4410096460624**

QuickSarkari.com | WhatsApp Channel | Telegram: t.me/quick_sarkari

Q.20 **Which of the following is an example of inclusion in Indian schools?**

Ans

✗ 1. Providing separate classrooms only for high-performing students

✓ 2. Allowing children from marginalized communities into regular classes

✗ 3. Limiting participation of children with disabilities in activities

✗ 4. Teaching only mainstream cultural content through textbooks

Question ID : **4410091551123**
Option 1 ID : **4410096126731**
Option 2 ID : **4410096126733**
Option 3 ID : **4410096126732**
Option 4 ID : **4410096126734**

"

Quick Sarkari

Quick Sarkari

Thank you for studying with QuickSarkari!

Get the latest Sarkari Naukri notifications, admit cards, results, answer keys and free previous-year papers first - follow us on WhatsApp and Telegram.

Visit www.quicksarkari.com

Join our WhatsApp Channel

https://whatsapp.com/channel/0029VaxxbrREquiPoXTWM229

Join our Telegram Channel

https://t.me/quick_sarkari

Share this PDF with your friends preparing for DSSSB exams.