Quick Sarkari

DSSSB PREVIOUS YEAR PAPER WITH ANSWER KEY

DSSSB Assistant Teacher (Primary) – PRT

19 February 2026 · Shift 3

डीएसएसएसबी सहायक अध्यापक (प्राथमिक) – PRT – 19 फरवरी 2026, शिफ्ट 3 का प्रश्न पत्र, उत्तर कुंजी सहित

199	120 min	1 / −0.25	EN + HI
Questions / प्रश्न	Duration / समय	Marks per Q / अंक	Language / भाषा

Sections: General Intelligence and Reasoning Ability, General Awareness, Arithmetical and Numerical Ability, English Language and Comprehension, Hindi Language and Comprehension, Assistant Teacher (Primary) – PRT

INSIDE THIS PDF / इस PDF में

Question Paper in English + Hindi with Answer Key (correct option marked in green) + answer table — Page 2–48
प्रश्न पत्र अंग्रेज़ी + हिंदी में, उत्तर कुंजी सहित (सही विकल्प हरे रंग में) + उत्तर तालिका

Official DSSSB Response Sheet with Answer Key (correct option ticked in green) — Page 49–116
आधिकारिक DSSSB रिस्पॉन्स शीट, उत्तर कुंजी सहित (सही विकल्प हरे टिक से)

HOW TO USE THIS PAPER / इस पेपर का उपयोग कैसे करें

1. Attempt the paper first as a timed online mock test (link below).
   पहले नीचे दिए लिंक से इसे टाइमर के साथ ऑनलाइन मॉक टेस्ट के रूप में हल करें।
2. Check your score, section-wise analysis and solutions online.
   ऑनलाइन अपना स्कोर, खंड-वार विश्लेषण और हल देखें।
3. Use this PDF for revision. Correct answers are shown in green.
   दोहराने के लिए इस PDF का उपयोग करें। सही उत्तर हरे रंग में दिए गए हैं।

Attempt this paper as a FREE online mock test

इस पेपर को फ्री ऑनलाइन मॉक टेस्ट के रूप में हल करें – टाइमर, स्कोर और हल के साथ

https://quicksarkari.com/dsssb-assistant-teacher-primary-19-february-2026-shift-3-mock-test/

All DSSSB Assistant Teacher (Primary) – PRT papers and mock tests: **quicksarkari.com/dsssb-mock-test/#assistant-teacher-primary**

Join WhatsApp Channel | Join Telegram Channel

DSSSB Assistant Teacher (Primary) – PRT – Question Paper (English + Hindi)

DSSSB सहायक अध्यापक (प्राथमिक) – PRT – प्रश्न पत्र (अंग्रेज़ी + हिंदी)

Exam held on 19 February 2026, Shift 3 · 199 questions · correct answers marked ✔ in green
परीक्षा तिथि 19 फरवरी 2026, शिफ्ट 3 · 199 प्रश्न · सही उत्तर हरे रंग में ✔ से चिह्नित

> The official paper for this shift was in English. The Hindi version of each question is a translation prepared by QuickSarkari; the language-section questions are shown as asked.
> इस शिफ्ट का आधिकारिक प्रश्न पत्र अंग्रेज़ी में था। प्रत्येक प्रश्न का हिंदी संस्करण QuickSarkari द्वारा तैयार किया गया अनुवाद है; भाषा खंड के प्रश्न मूल रूप में दिए गए हैं।

General Intelligence and Reasoning Ability

Q.1 Based on the alphabetical order, three of the following four are alike in a certain way and thus form a group. Which is the one that does not belong to that group? (Note: The odd man out is not based on the number of consonants/vowels or their position in the letter cluster)

अंग्रेजी वर्णमाला क्रम के आधार पर, निम्नलिखित चार में से तीन किसी निश्चित प्रकार से एकसमान हैं और इस प्रकार एक समूह बनाते हैं। वह कौन-सा विकल्प है जो उस समूह से संबंधित नहीं है? (नोट: असंगत का चयन व्यंजनों/स्वरों की संख्या या अक्षर-समूह में उनके स्थान पर आधारित नहीं है)

(1) YCB
(2) **FKI ✔**
(3) HLK
(4) CGF

QuickSarkari

Q.2 If the water source is placed along M-N, as shown in the figure, which of the given options will be the water reflection of the given figure?

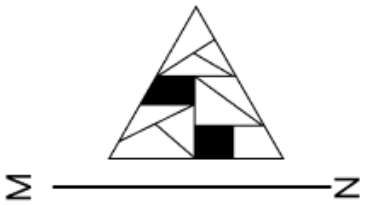

यदि जल स्रोत को आकृति में दर्शाए अनुसार M-N के अनुदिश रखा जाए, तो दिए गए विकल्पों में से कौन-सा विकल्प दी गई आकृति का जल प्रतिबिंब होगा?

(1) 

(2) 

(3)  ✔

(4) 

Q.3 Seven people, D, A, N, U, B, E and S are sitting in a row, facing north. Only two people sit between N and S. Only B sits to the right of U. Only one person sits between S and U. D sits at some place to the right of E but at some place to the left of A. How many people sit between A and E?

सात व्यक्ति, D, A, N, U, B, E और S एक पंक्ति में उत्तर की ओर मुख करके बैठे हैं। N और S के बीच केवल दो व्यक्ति बैठे हैं। U के दाईं ओर केवल B बैठा है। S और U के बीच केवल एक व्यक्ति बैठा है। D, E के दाईं ओर किसी स्थान पर, परंतु A के बाईं ओर किसी स्थान पर बैठा है। A और E के बीच कितने व्यक्ति बैठे हैं?

(1) One / एक
(2) **Two / दो ✔**
(3) Three / तीन
(4) Four / चार

Q.4 The position(s) of how many letters will remain unchanged if each letter in the word HUMANITY is arranged in the English alphabetical order?

यदि शब्द HUMANITY के प्रत्येक अक्षर को अंग्रेजी वर्णमाला क्रम में व्यवस्थित किया जाए, तो कितने अक्षरों का/के स्थान अपरिवर्तित रहेगा/रहेंगे?

(1) **Two / दो ✔**
(2) One / एक
(3) Three / तीन
(4) Zero / शून्य

QuickSarkari.com | WhatsApp Channel | Telegram: t.me/quick_sarkari

Q.5 Each of A, B, C, D, I, J and K has an exam on a different day of a week starting from Monday and ending on Sunday of the same week. Only three people have exams between D and J. Only three people have exams between B and I. K has exam on some day before J and on some day after A. Only C has exam before I.
How many people have exams after D?

A, B, C, D, I, J और K में से प्रत्येक की एक ही सप्ताह के सोमवार से प्रारंभ होकर रविवार को समाप्त होने वाले सप्ताह के अलग-अलग दिन परीक्षा है। D और J के बीच केवल तीन व्यक्तियों की परीक्षा है। B और I के बीच केवल तीन व्यक्तियों की परीक्षा है। K की परीक्षा J से पहले किसी दिन और A के बाद किसी दिन है। I से पहले केवल C की परीक्षा है।
D के बाद कितने व्यक्तियों की परीक्षा है?

(1) Two / दो
(2) Three / तीन
(3) One / एक
(4) **Four / चार ✔**

Q.6 If 'A' stands for '÷' , 'B' stands for 'x', 'C' stands for '+' and 'D' stands for '-', what will come in place of question mark '?' in the following equation?
13 B 4 D 6 A 2 C 9 = ?

यदि 'A' का अर्थ '÷', 'B' का अर्थ 'x', 'C' का अर्थ '+' और 'D' का अर्थ '-' है, तो निम्नलिखित समीकरण में प्रश्न चिह्न '?' के स्थान पर क्या आएगा?
13 B 4 D 6 A 2 C 9 = ?

(1) 56
(2) **58 ✔**
(3) 52
(4) 60

Q.7 In a row of 50 students facing north, Hari is 10th from the right end. If Kapil is 4th to the left of Hari, what is Kapil's position from the left end of the line?

उत्तर की ओर मुख करके खड़े 50 विद्यार्थियों की एक पंक्ति में, हरि दाएँ छोर से 10वें स्थान पर है। यदि कपिल, हरि के बाईं ओर 4था है, तो पंक्ति के बाएँ छोर से कपिल का स्थान क्या है?

(1) 38th / 38वाँ
(2) 36th / 36वाँ
(3) 35th / 35वाँ
(4) **37th / 37वाँ ✔**

Q.8 Each vowel in the word FEASIBLE is changed to the letter immediately following it in the English alphabetical order and each consonant is changed to the second letter preceding it in the English alphabetical order. How many letters will appear exactly twice in the new group of letters thus formed?

शब्द FEASIBLE में प्रत्येक स्वर को अंग्रेजी वर्णमाला क्रम में उसके ठीक बाद वाले अक्षर में बदल दिया जाता है और प्रत्येक व्यंजन को अंग्रेजी वर्णमाला क्रम में उससे दो स्थान पहले वाले अक्षर में बदल दिया जाता है। इस प्रकार बने अक्षरों के नए समूह में कितने अक्षर ठीक दो बार आएँगे?

(1) Four / चार
(2) Three / तीन
(3) **Two / दो ✔**
(4) One / एक

Q.9 Which of the following letter-number clusters will replace the question mark (?) in the given series to make it logically complete?
FZK51, ZTE70, TNY89, NHS108, ?

निम्नलिखित में से कौन-सा अक्षर-संख्या समूह दी गई श्रृंखला को तार्किक रूप से पूर्ण बनाने के लिए उसमें प्रश्न चिह्न (?) का स्थान लेगा?
FZK51, ZTE70, TNY89, NHS108, ?

(1) HBM127 ✔
(2) HIM127
(3) HBN127
(4) JBM127

Q.10 Below are given two sets of numbers. In each set of numbers, a certain mathematical operation on the first number results in the second number.
Similarly, certain mathematical operation on the second number results in the third number and so on.
Which of the given options follows the same set of operations as in the question?
(NOTE – A two/three-digit number cannot be broken into individual digits for operations e.g. if 37 is followed by 10, the operation cannot be 3+7 as a two- digit number cannot be broken into individual digits)
13 - 20 - 15 - 25 48 - 55 - 50 - 60

नीचे संख्याओं के दो समुच्चय दिए गए हैं। संख्याओं के प्रत्येक समुच्चय में, पहली संख्या पर एक निश्चित गणितीय संक्रिया करने से दूसरी संख्या प्राप्त होती है।
इसी प्रकार, दूसरी संख्या पर एक निश्चित गणितीय संक्रिया करने से तीसरी संख्या प्राप्त होती है और इसी प्रकार आगे भी। दिए गए विकल्पों में से कौन-सा विकल्प प्रश्न के समान संक्रियाओं के समुच्चय का अनुसरण करता है?
(नोट – संक्रियाएँ करने के लिए दो/तीन अंकों की संख्या को अलग-अलग अंकों में विभाजित नहीं किया जा सकता, उदाहरण के लिए यदि 37 के बाद 10 आता है, तो संक्रिया 3+7 नहीं हो सकती क्योंकि दो अंकों की संख्या को अलग-अलग अंकों में विभाजित नहीं किया जा सकता)
13 - 20 - 15 - 25 48 - 55 - 50 - 60

(1) 42 - 50 - 45 - 56
(2) 18 - 25 - 20 - 30 ✔
(3) 25 - 36 - 31 - 41
(4) 14 - 24 - 17 - 27

QuickSarkari

Q.11 Select the correct mirror image of the given figure when the mirror is placed at MN as shown below.



जब दर्पण को नीचे दर्शाए अनुसार MN पर रखा जाता है, तो दी गई आकृति के सही दर्पण प्रतिबिंब का चयन करें।

(1) 

(2) 

(3) 

(4)  ✔

Q.12 Refer to the following number and symbol series and answer the question that follows. Counting to be done from left to right only. All numbers are single-digit numbers only.
(Left) 2 8 3 @ & / > 9 8 \ $ 8 > 5 * ^ 9 4 2 5 ^ (Right)
How many such symbols are there, each of which is immediately preceded by a number and also immediately followed by a number?

निम्नलिखित संख्या और प्रतीक श्रृंखला को देखें और उसके बाद दिए गए प्रश्न का उत्तर दें। गिनती केवल बाएँ से दाएँ की जानी है। सभी संख्याएँ केवल एक अंक वाली संख्याएँ हैं।
(बाएँ) 2 8 3 @ & / > 9 8 \ $ 8 > 5 * ^ 9 4 2 5 ^ (दाएँ)
ऐसे कितने प्रतीक हैं, जिनमें से प्रत्येक के ठीक पहले एक संख्या है और ठीक बाद भी एक संख्या है?

(1) One / एक ✔
(2) None / एक भी नहीं
(3) Three / तीन
(4) Two / दो

Q.13 F is the sister of I. I is the brother of G. W is the father of Z. Z is the son of G.
How is Z related to F?

F, I की बहन है। I, G का भाई है। W, Z का पिता है। Z, G का पुत्र है।
Z का F से क्या संबंध है?

(1) Father / पिता
(2) Sister's son / बहन का पुत्र ✔
(3) Sister's husband / बहन का पति
(4) Son / पुत्र

QuickSarkari.com | WhatsApp Channel | Telegram: t.me/quick_sarkari

Q.14 Refer to the following series and answer the question (all numbers are single digit numbers only.Counting has to be done from left to right)
(Left) 9 1 7 8 3 1 5 7 9 6 2 9 3 6 9 1 5 7 1 5 7 (Right)
How many such even digits are there each of which is immediately preceded by an even digit and also immediately followed by an odd digit?

निम्नलिखित श्रृंखला को देखें और प्रश्न का उत्तर दें (सभी संख्याएँ केवल एक अंक वाली संख्याएँ हैं। गिनती बाएँ से दाएँ की जानी है)
(बाएँ) 9 1 7 8 3 1 5 7 9 6 2 9 3 6 9 1 5 7 1 5 7 (दाएँ)
ऐसे कितने सम अंक हैं, जिनमें से प्रत्येक के ठीक पहले एक सम अंक है और ठीक बाद एक विषम अंक भी है?

(1) One / एक ✔
(2) Four / चार
(3) Two / दो
(4) Three / तीन

Q.15 If 'A' stands for '÷' , 'B' stands for '×', 'C' stands for '+' and 'D' stands for '-' , what will be come in place of question mark '?' in the following equation?
84 A 4 B 8 C 28 D 14=?

यदि 'A' का अर्थ '÷', 'B' का अर्थ '×', 'C' का अर्थ '+' और 'D' का अर्थ '-' है, तो निम्नलिखित समीकरण में प्रश्न चिह्न '?' के स्थान पर क्या आएगा?
84 A 4 B 8 C 28 D 14=?

(1) 184
(2) 186
(3) 180
(4) 182 ✔

Q.16 GECB is related to ECAZ in a certain way based on the English alphabetical order. In the same way, XVTS is related to VTRQ. To which of the following is WUSR related, following the same logic?

अंग्रेजी वर्णमाला क्रम के आधार पर GECB एक निश्चित प्रकार से ECAZ से संबंधित है। उसी प्रकार, XVTS, VTRQ से संबंधित है। समान तर्क का अनुसरण करते हुए, WUSR निम्नलिखित में से किससे संबंधित है?

(1) USPP
(2) URPP
(3) USQP ✔
(4) UTPX

Q.17 Each of E, F, G, H, Q, R and S has an exam on a different day of a week starting from Monday and ending on Sunday of the same week. Only two people have exam before R. Only one person has exam after Q. Only three people have exam between R and G. Only one person has exam between F and S. H has exam immediately before F. How many people have exam between E and F?

E, F, G, H, Q, R और S में से प्रत्येक की एक ही सप्ताह के सोमवार से प्रारंभ होकर रविवार को समाप्त होने वाले सप्ताह के अलग-अलग दिन परीक्षा है। R से पहले केवल दो व्यक्तियों की परीक्षा है। Q के बाद केवल एक व्यक्ति की परीक्षा है। R और G के बीच केवल तीन व्यक्तियों की परीक्षा है। F और S के बीच केवल एक व्यक्ति की परीक्षा है। H की परीक्षा F से ठीक पहले है। E और F के बीच कितने व्यक्तियों की परीक्षा है?

(1) One / एक
(2) Two / दो ✔
(3) Four / चार
(4) Three / तीन

Q.18 What should come in place of '?' in the given series?
88 92 76 112 48 ?
दी गई श्रृंखला में '?' के स्थान पर क्या आना चाहिए?
88 92 76 112 48 ?

(1) 122
(2) 148 ✔
(3) 134
(4) 156

Q.19 In a certain code language, 'HARM' is coded as '7859' and 'HEAR' is coded as '8257'. What is the code for 'E' in the given code language?
एक निश्चित कूट भाषा में, 'HARM' को '7859' के रूप में और 'HEAR' को '8257' के रूप में कूटबद्ध किया जाता है। दी गई कूट भाषा में 'E' के लिए कूट क्या है?

(1) 5
(2) 8
(3) 2 ✔
(4) 9

Q.20 Based on the English alphabetical order, three of the following four letter- cluster pairs are alike in a certain way and thus form a group. Which is the one that does not belong to that group? (Note: The odd one out is not based on the number of consonants/vowels or their position in the letter cluster.)
अंग्रेजी वर्णमाला क्रम के आधार पर, निम्नलिखित चार अक्षर-समूह युग्मों में से तीन किसी निश्चित प्रकार से एकसमान हैं और इस प्रकार एक समूह बनाते हैं। वह कौन-सा युग्म है जो उस समूह से संबंधित नहीं है? (नोट: असंगत का चयन व्यंजनों/स्वरों की संख्या या अक्षर-समूह में उनके स्थान पर आधारित नहीं है।)

(1) OK - IE
(2) PK - JF ✔
(3) RN - LH
(4) KG - EA

General Awareness

Q.21 Which Indian sprinter became the first to clock below 10.2 seconds in the men's 100 m in early July 2025?
जुलाई 2025 की शुरुआत में पुरुषों की 100 m दौड़ में 10.2 सेकंड से कम समय निकालने वाला पहला भारतीय धावक कौन बना?

(1) Gurindervir Singh / गुरिंदरवीर सिंह
(2) Animesh Kujur / अनिमेष कुजूर ✔
(3) Gulveer Singh / गुलवीर सिंह
(4) Amlan Borgohain / अमलान बोरगोहेन

Q.22 When did the revolt of 1857 start?
1857 का विद्रोह कब प्रारंभ हुआ?

(1) 12 April / 12 अप्रैल
(2) 15 June / 15 जून
(3) 15 August / 15 अगस्त
(4) 10 May / 10 मई ✔

Q.23 Who among the following was the founder of the Imperial Chola Dynasty?

निम्नलिखित में से कौन शाही चोल राजवंश का संस्थापक था?

(1) Vijayalaya / विजयालय ✔

(2) Dantidurga / दंतिदुर्ग

(3) Gopala / गोपाल

(4) Dharmapala / धर्मपाल

Q.24 Which national organization has set up a committee in February 2025 to develop a strategic plan for upgrading AIIMS, New Delhi, into a globally recognized center for medical research and healthcare excellence?

किस राष्ट्रीय संगठन ने फरवरी 2025 में एम्स (AIIMS), नई दिल्ली को चिकित्सा अनुसंधान और स्वास्थ्य सेवा उत्कृष्टता के विश्व स्तर पर मान्यता प्राप्त केंद्र के रूप में उन्नत करने हेतु एक रणनीतिक योजना विकसित करने के लिए एक समिति गठित की है?

(1) NITI Aayog / नीति आयोग ✔

(2) Reserve Bank of India / भारतीय रिज़र्व बैंक

(3) National Development Council / राष्ट्रीय विकास परिषद

(4) Finance Commission / वित्त आयोग

Q.25 What causes structural unemployment in the context of India?

भारत के संदर्भ में संरचनात्मक बेरोजगारी का कारण क्या है?

(1) Seasonal demand fluctuations / मौसमी मांग में उतार-चढ़ाव

(2) Temporary layoffs during economic slowdowns / आर्थिक मंदी के दौरान अस्थायी छँटनी

(3) Slowdown in the agriculture / कृषि में मंदी

(4) Insufficient qualifications to meet job demands due to changes in the economy / अर्थव्यवस्था में परिवर्तनों के कारण रोजगार की मांगों को पूरा करने के लिए अपर्याप्त योग्यता ✔

Q.26 Which factor from the following causes the reversal of winds over the Indian subcontinent, leading to the monsoon?

निम्नलिखित में से कौन-सा कारक भारतीय उपमहाद्वीप पर पवनों की दिशा के उलटने का कारण बनता है, जिससे मानसून आता है?

(1) Movement of cold ocean currents near the Indian coast / भारतीय तट के निकट ठंडी महासागरीय धाराओं का प्रवाह

(2) Formation of the El Niño effect / एल नीनो प्रभाव का निर्माण

(3) Shifting of the Inter-Tropical Convergence Zone (ITCZ) / अंतर-उष्णकटिबंधीय अभिसरण क्षेत्र (ITCZ) का खिसकना ✔

(4) Western Disturbances from the Mediterranean region / भूमध्यसागरीय क्षेत्र से आने वाले पश्चिमी विक्षोभ

Q.27 In November 2024, which Indian company announced to launch MOI-TD, the nation's first space-based AI laboratory, on board ISRO's PSLV-C60 mission?

नवंबर 2024 में, किस भारतीय कंपनी ने इसरो (ISRO) के PSLV-C60 मिशन पर देश की पहली अंतरिक्ष-आधारित AI प्रयोगशाला, MOI-TD लॉन्च करने की घोषणा की?

(1) Dhruva Space / ध्रुव स्पेस

(2) Space Zone / स्पेस ज़ोन

(3) Skyroot Aerospace / स्काईरूट एयरोस्पेस

(4) TakeMe2 Space / टेकमी2 स्पेस ✔

Q.28 Which Sikh festival commemorates the birth anniversary of the first spiritual teacher of the faith?
कौन-सा सिख त्योहार इस धर्म के पहले आध्यात्मिक गुरु की जयंती के उपलक्ष्य में मनाया जाता है?

(1) Guru Nanak Jayanti / गुरु नानक जयंती ✔
(2) Hola Mohalla / होला मोहल्ला
(3) Baisakhi / बैसाखी
(4) Lohri / लोहड़ी

Q.29 Why is thermal power not considered a renewable energy source?
तापीय विद्युत को नवीकरणीय ऊर्जा स्रोत क्यों नहीं माना जाता है?

(1) It can only be produced in coastal areas / इसका उत्पादन केवल तटीय क्षेत्रों में किया जा सकता है
(2) It depends on finite coal reserves / यह सीमित कोयला भंडारों पर निर्भर करती है ✔
(3) It requires nuclear fuel / इसके लिए परमाणु ईंधन की आवश्यकता होती है
(4) It is expensive to produce / इसका उत्पादन महंगा है

Q.30 What is the main role of NABARD?
नाबार्ड (NABARD) की मुख्य भूमिका क्या है?

(1) Regulate credit facilities for the development of agriculture / कृषि के विकास के लिए ऋण सुविधाओं को विनियमित करना ✔
(2) Provide insurance to rural workers / ग्रामीण श्रमिकों को बीमा प्रदान करना
(3) Control rural population growth / ग्रामीण जनसंख्या वृद्धि को नियंत्रित करना
(4) Manufacture agricultural tools / कृषि उपकरणों का निर्माण करना

Q.31 Which of the following statements regarding the Inter-State Council under Article 263 is CORRECT?
अनुच्छेद 263 के अंतर्गत अंतर-राज्य परिषद के संबंध में निम्नलिखित में से कौन-सा कथन सही है?

(1) It can be established by the President if deemed necessary in the public interest. / यदि लोकहित में आवश्यक समझा जाए, तो इसकी स्थापना राष्ट्रपति द्वारा की जा सकती है। ✔
(2) It is a permanent constitutional body. / यह एक स्थायी संवैधानिक निकाय है।
(3) It can be established by the Chief Justice of India if deemed necessary in the public interest. / यदि लोकहित में आवश्यक समझा जाए, तो इसकी स्थापना भारत के मुख्य न्यायाधीश द्वारा की जा सकती है।
(4) It has adjudicatory powers to resolve interstate river water disputes. / इसके पास अंतरराज्यीय नदी जल विवादों को सुलझाने के लिए न्यायनिर्णयन शक्तियाँ हैं।

Q.32 According to the Constitution of India, which of the following pairs of urban bodies and their corresponding areas is CORRECTLY matched?
भारत के संविधान के अनुसार, नगरीय निकायों और उनके संगत क्षेत्रों के निम्नलिखित में से कौन-से युग्म का सही मिलान किया गया है?

(1) Municipal Corporation – Transitional area moving from rural to urban / नगर निगम – ग्रामीण से नगरीय की ओर संक्रमणशील क्षेत्र
(2) Municipal Board – Rural area with no urban characteristic / नगर बोर्ड – बिना किसी नगरीय विशेषता वाला ग्रामीण क्षेत्र
(3) Nagar Panchayat – Fully developed urban metropolis / नगर पंचायत – पूर्ण रूप से विकसित नगरीय महानगर
(4) Municipal Council – Smaller urban area / नगर परिषद – छोटा नगरीय क्षेत्र ✔

Q.33 The Peninsular Plateau of India is mainly composed of which type of rocks among the following?
भारत का प्रायद्वीपीय पठार मुख्य रूप से निम्नलिखित में से किस प्रकार की चट्टानों से बना है?

(1) Igneous and Metamorphic Rocks / आग्नेय और कायांतरित चट्टानें ✔
(2) Sedimentary Rocks only / केवल अवसादी चट्टानें
(3) Sedimentary and Metamorphic Rocks / अवसादी और कायांतरित चट्टानें
(4) Metamorphic Rocks only / केवल कायांतरित चट्टानें

Q.34 Which theory is required for a complete explanation of ferromagnetic interactions?
लौहचुंबकीय अन्योन्यक्रियाओं की पूर्ण व्याख्या के लिए किस सिद्धांत की आवश्यकता होती है?

(1) Electrodynamics / विद्युतगतिकी ✔
(2) Classical mechanics / चिरसम्मत यांत्रिकी
(3) Newtonian / न्यूटनीय
(4) Quantum mechanics / क्वांटम यांत्रिकी

Q.35 Who won the doubles title at the 2025 Dubai Open Tennis Championship?
2025 दुबई ओपन टेनिस चैंपियनशिप में युगल खिताब किसने जीता?

(1) Rohan Bopanna & Hubert Hurkacz / रोहन बोपन्ना और ह्यूबर्ट हर्काज़
(2) Daniil Medvedev & Andrey Rublev / डेनियल मेदवेदेव और आंद्रे रुबलेव
(3) Sumit Nagal & Denis Shapovalov / सुमित नागल और डेनिस शापोवालोव
(4) Yuki Bhambri & Alexei Popyrin / युकी भांबरी और एलेक्सी पॉपिरिन ✔

Q.36 According to the Constitution of India, who has the authority to determine the salaries and privileges of the Judges of the Supreme Court?
भारत के संविधान के अनुसार, सर्वोच्च न्यायालय के न्यायाधीशों के वेतन और विशेषाधिकार निर्धारित करने का अधिकार किसके पास है?

(1) The Parliament of India, by law or as specified in the Second Schedule / भारत की संसद, विधि द्वारा या द्वितीय अनुसूची में यथा विनिर्दिष्ट ✔
(2) The President of India, by notification in the Official Gazette / भारत के राष्ट्रपति, राजपत्र में अधिसूचना द्वारा
(3) The Ministry of Law and Justice, under executive order / विधि और न्याय मंत्रालय, कार्यकारी आदेश के अंतर्गत
(4) The Chief Justice of India, in consultation with the Council of Ministers / भारत के मुख्य न्यायाधीश, मंत्रिपरिषद के परामर्श से

Q.37 The ICC Champions Trophy 2025 was won by which cricket team?
ICC चैंपियंस ट्रॉफी 2025 किस क्रिकेट टीम ने जीती?

(1) England / इंग्लैंड
(2) Pakistan / पाकिस्तान
(3) Australia / ऑस्ट्रेलिया
(4) India / भारत ✔

Q.38 The bond between oxygen and hemoglobin is _____.
ऑक्सीजन और हीमोग्लोबिन के बीच का बंध _____ होता है।

(1) Ionic / आयनिक
(2) Reversible / उत्क्रमणीय ✔
(3) Permanent / स्थायी
(4) Irreversible / अनुत्क्रमणीय

Q.39 The Qutub Minar, a UNESCO World Heritage Site, is located in which Indian city?

यूनेस्को विश्व धरोहर स्थल, कुतुब मीनार किस भारतीय शहर में स्थित है?

(1) Delhi / दिल्ली ✔

(2) Hyderabad / हैदराबाद

(3) Jaipur / जयपुर

(4) Agra / आगरा

Q.40 When did Tilka Manjhi start the Manjhi Revolt against the British regime in Bihar?

तिलका मांझी ने बिहार में ब्रिटिश शासन के विरुद्ध मांझी विद्रोह कब प्रारंभ किया?

(1) 1785 ✔

(2) 1833

(3) 1850

(4) 1832

Arithmetical and Numerical Ability

Q.41 Find the simple interest (in ₹) on ₹3500 as a sum borrowed at 8% per year rate of interest for 4 years.

₹3500 की उधार ली गई राशि पर 8% वार्षिक ब्याज दर से 4 वर्ष का साधारण ब्याज (₹ में) ज्ञात कीजिए।

(1) 1160

(2) 1120 ✔

(3) 1060

(4) 1080

Q.42 Suresh bought some quantity of barley for ₹5,704. Half of it is sold at a profit of 39%. If Suresh wishes to make a profit of 7% on the whole, find the selling price (in ₹) of the remaining barley.

सुरेश ने ₹5,704 में कुछ मात्रा में जौ खरीदा। इसका आधा भाग 39% के लाभ पर बेचा जाता है। यदि सुरेश संपूर्ण पर 7% का लाभ कमाना चाहता है, तो शेष जौ का विक्रय मूल्य (₹ में) ज्ञात कीजिए।

(1) 2,496

(2) 2,139 ✔

(3) 2,990

(4) 1,492

Q.43 The average weight of a family of five members whose weights are 40 kg, 49 kg, 57 kg, 76 kg and 38 kg is:

पाँच सदस्यों वाले एक परिवार, जिनके भार 40 kg, 49 kg, 57 kg, 76 kg और 38 kg हैं, का औसत भार है:

(1) 52 kg ✔

(2) 51 kg

(3) 54 kg

(4) 53 kg

Q.44 The dimensions of a brick are 8.5 inch, 5.6 inch and 4.3 inch. Find volume (in inches^3) of biggest cube that can be cut out of the brick. (Rounded off to 2 decimal places)

एक ईंट की विमाएँ 8.5 इंच, 5.6 इंच और 4.3 इंच हैं। ईंट में से काटे जा सकने वाले सबसे बड़े घन का आयतन (इंच^3 में) ज्ञात कीजिए। (दशमलव के 2 स्थानों तक पूर्णांकित)

(1) 89.07
(2) **79.51** ✔
(3) 86.12
(4) 83.42

Q.45 If Kundan's salary increases by 15% in the first year and by 10% in the next year, then what will be net percentage increase in the salary after two years?

यदि कुंदन का वेतन पहले वर्ष में 15% और अगले वर्ष में 10% बढ़ता है, तो दो वर्षों के बाद वेतन में शुद्ध प्रतिशत वृद्धि कितनी होगी?

(1) 25.5%
(2) 27.5%
(3) **26.5%** ✔
(4) 28.5%

Q.46 The population of a town increases by 10% every year. If the current population is 5,50,000, what will be the population of this town after 2 years?

एक नगर की जनसंख्या प्रति वर्ष 10% बढ़ती है। यदि वर्तमान जनसंख्या 5,50,000 है, तो 2 वर्ष बाद इस नगर की जनसंख्या कितनी होगी?

(1) 6,60,000
(2) 6,70,000
(3) 6,50,000
(4) **6,65,500** ✔

Q.47 A shopkeeper marks an article at ₹2,500. During a sale, he offers a discount of 12% on the marked price. However, the customer also has a coupon for an additional 5% off on the discounted price. What is the final price paid by the customer?

एक दुकानदार एक वस्तु पर ₹2,500 मूल्य अंकित करता है। एक सेल के दौरान, वह अंकित मूल्य पर 12% की छूट देता है। हालाँकि, ग्राहक के पास छूट वाले मूल्य पर अतिरिक्त 5% छूट का एक कूपन भी है। ग्राहक द्वारा भुगतान किया गया अंतिम मूल्य क्या है?

(1) **₹2,090** ✔
(2) ₹2,100
(3) ₹2,075
(4) ₹2,125

Q.48 A sailor travels a distance of 32 km in the upstream and 48 km in the downstream and takes 8 hours in each case.
Find the speed (in km/hr) of the stream.

एक नाविक धारा के प्रतिकूल 32 km और धारा के अनुकूल 48 km की दूरी तय करता है और प्रत्येक स्थिति में 8 घंटे लेता है।
धारा की चाल (km/hr में) ज्ञात कीजिए।

(1) 3
(2) 4
(3) 2
(4) **1** ✔

Q.49 The HCF of two numbers is 12, and one of the numbers is 36. What is the smallest possible value of the other number?

दो संख्याओं का महत्तम समापवर्तक (HCF) 12 है, और उनमें से एक संख्या 36 है। दूसरी संख्या का न्यूनतम संभव मान क्या है?

(1) 18

(2) 12 ✔

(3) 36

(4) 24

Q.50 A shopkeeper has 500 kg of tea, part of which he sells at 8% profit and the rest at 18% profit. The shopkeeper gains 10% on the whole. The quantity (in kg) he sold at 8% profit is:

एक दुकानदार के पास 500 kg चाय है, जिसका कुछ भाग वह 8% लाभ पर और शेष भाग 18% लाभ पर बेचता है। दुकानदार को संपूर्ण पर 10% का लाभ होता है। उसके द्वारा 8% लाभ पर बेची गई मात्रा (kg में) है:

(1) 350

(2) 300

(3) 400 ✔

(4) 360

Q.51 The LCM of four consecutive natural numbers is 840. Find the smallest number.

चार क्रमागत प्राकृत संख्याओं का लघुत्तम समापवर्त्य (LCM) 840 है। सबसे छोटी संख्या ज्ञात कीजिए।

(1) 5 ✔

(2) 8

(3) 4

(4) 6

Q.52 The diameter of a solid metallic sphere is 12 cm. It is melted and drawn into a wire with a diameter of 8 mm having a uniform cross-section. Find the length of the wire.

एक ठोस धात्विक गोले का व्यास 12 cm है। इसे पिघलाकर समान अनुप्रस्थ काट वाले 8 mm व्यास के एक तार के रूप में खींचा जाता है। तार की लंबाई ज्ञात कीजिए।

(1) 1200 cm

(2) 1800 cm ✔

(3) 1600 cm

(4) 1400 cm

Q.53 A man travels three equal distances with speeds 10 km/hr, 12 km/hr and 15 km/hr. If he takes a total time of 7 hours, what is the total distance (in km)?

एक व्यक्ति तीन बराबर दूरियाँ 10 km/hr, 12 km/hr और 15 km/hr की चाल से तय करता है। यदि उसे कुल 7 घंटे का समय लगता है, तो कुल दूरी (km में) कितनी है?

(1) 56

(2) 90

(3) 84 ✔

(4) 72

Q.54 Study the given bar graph and answer the question that follows The given bar graph depicts the production of fertilisers by a company (in 10000 tonnes) over the years.

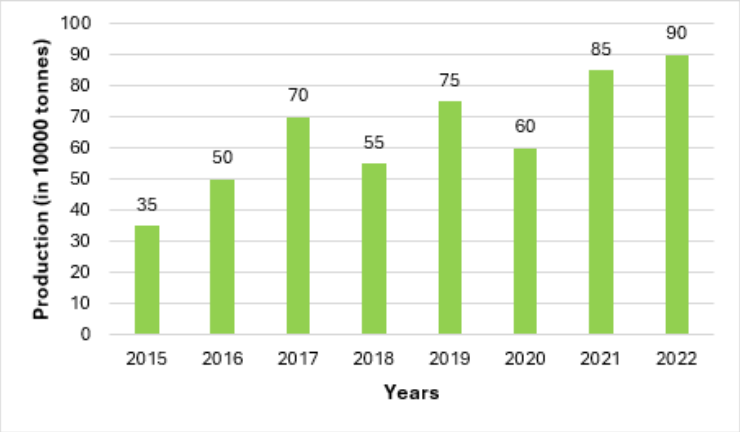

What was the percentage increase in the production of fertilisers in 2022 compared to that in 2020?

दिए गए दंड आलेख का अध्ययन करें और उसके बाद दिए गए प्रश्न का उत्तर दें। दिया गया दंड आलेख वर्षों के दौरान एक कंपनी द्वारा उर्वरकों के उत्पादन (10000 टन में) को दर्शाता है।

2020 की तुलना में 2022 में उर्वरकों के उत्पादन में कितने प्रतिशत की वृद्धि हुई?

(1) 50% ✔

(2) 45%

(3) 40%

(4) 60%

Q.55 The slant height of a solid cone is 10 cm, and its radius is 6 cm. What is its total surface area (in cm^2)?

एक ठोस शंकु की तिर्यक ऊँचाई 10 cm है और इसकी त्रिज्या 6 cm है। इसका कुल पृष्ठीय क्षेत्रफल (cm^2 में) क्या है?

(1) 94π

(2) 90π

(3) 96π ✔

(4) 92π

Q.56 Two taps can fill a cistern in 3 hours and 36 hours, respectively. A third tap can empty it in 4 hours. How long (in hours) will it take to fill one-third of the empty cistern, if all of them are opened together?

दो नल एक टंकी को क्रमशः 3 घंटे और 36 घंटे में भर सकते हैं। एक तीसरा नल इसे 4 घंटे में खाली कर सकता है। यदि तीनों नल एक साथ खोल दिए जाएँ, तो खाली टंकी का एक-तिहाई भाग भरने में कितना समय (घंटों में) लगेगा?

(1) 4

(2) 10

(3) 3 ✔

(4) 9

Q.57 If 28, K, 56 and 136 are in continued proportion, then find the value of K.

यदि 28, K, 56 और 136 वितत अनुपात में हैं, तो K का मान ज्ञात कीजिए।

(1) 62

(2) 68 ✔

(3) 79

(4) 75

QuickSarkari.com | WhatsApp Channel | Telegram: t.me/quick_sarkari

Q.58 A shopkeeper buys goods at 20% discount on the labeled price and sells them at the labeled price. What is his profit percentage?

एक दुकानदार अंकित मूल्य पर 20% की छूट पर माल खरीदता है और उसे अंकित मूल्य पर बेचता है। उसका लाभ प्रतिशत क्या है?

(1) 20%

(2) 16%

(3) 30%

(4) 25% ✔

Q.59 A and B can do a piece of work in 5 days and 8 days, respectively. How many days will both take to complete the work together?

A और B किसी कार्य को क्रमशः 5 दिन और 8 दिन में कर सकते हैं। दोनों एक साथ मिलकर कार्य को कितने दिनों में पूरा करेंगे?

(1) 4 1/4 days / 4 1/4 दिन

(2) 2 1/5 days / 2 1/5 दिन

(3) 5 1/13 days / 5 1/13 दिन

(4) 3 1/13 days / 3 1/13 दिन ✔

Q.60 A sum of ₹13,020 is to be divided among A, B, C and D such that the shares of A and B are in the ratio 2 : 3, the shares of B and C are in the ratio 4 : 5, and the shares of C and D are in the ratio 6 : 7. Find the share of A.

₹13,020 की एक राशि को A, B, C और D में इस प्रकार बाँटा जाना है कि A और B के हिस्सों का अनुपात 2 : 3 हो, B और C के हिस्सों का अनुपात 4 : 5 हो, और C और D के हिस्सों का अनुपात 6 : 7 हो। A का हिस्सा ज्ञात कीजिए।

(1) ₹1,849

(2) ₹1,948

(3) ₹1,894

(4) ₹1,984 ✔

English Language and Comprehension

Q.61 In the given question, a statement divided into different segments is given.
Rearrange all the segments to form a coherent statement.

(A) the teacher encouraged

(B) clearly during the group activity

(C) them to think critically and

(D) express their opinions

(1) ACDB ✔

(2) DBCA

(3) BDCA

(4) ABCD

Q.62 Parts of a sentence are given below in jumbled order. Arrange the parts in the correct order to form a meaningful sentence.
The inclusiveness of Indian society
P: of every caste and creed
Q: by creating space for people
R: of social and cultural life
S: not only acknowledges differences T: but also weaves them into the fabric

(1) P S Q T R
(2) S Q P T R
(3) T P Q S R
(4) S P T R Q ✔

Q.63 Select the appropriate preposition to fill in the blank.
The discussion will take place _____ the senior members of the committee.

(1) across
(2) by
(3) among ✔
(4) between

Q.64 Identify the relationship between the first pair of words and choose the option that best completes the analogy.
Metaphor : Poetry :: Statistic : ?

(1) Fiction
(2) Grammar
(3) Analysis ✔
(4) Painting

Q.65 Select the option that can be used as a one-word substitute for the underlined segment in the given sentence.
My college professor is a person who cannot be corrected or improved.

(1) incorrigible ✔
(2) insolent
(3) incurable
(4) infallible

Q.66 Fill in the blanks with the correct option.
He quoted from ___ Bible and referred to ___ Book of Genesis.

(1) a, the
(2) the, the ✔
(3) a, a
(4) the, a

QuickSarkari.com | WhatsApp Channel | Telegram: t.me/quick_sarkari

Q.67 Choose the word that is similar in meaning to the underlined word.
The children were delighted by the magician's amusing tricks.

(1) tedious
(2) impressive
(3) sombre
(4) **entertaining ✔**

Q.68 Select the option with the correct spelling to replace the underlined word in the given sentence.
The problem was, however, solved rather ingenously.

(1) **ingeniously ✔**
(2) ingeniousily
(3) inginiously
(4) ingeneously

Q.69 In the following sentence, a segment is highlighted. You are required to replace the highlighted text with the correct proverb given in the options.
Even though both negotiators were known for their cunning, in this case, it was truly a matter of one cunning person matching wits with another.

(1) empty vessels make the most noise
(2) **diamonds cut diamonds ✔**
(3) birds of a feather flock together
(4) every ass likes to hear himself bray

Q.70 I don't want to spoil your plans, but the concert has been cancelled due to heavy rain.
Which idiom can best replace the underlined words?

(1) **Rain on Your Parade ✔**
(2) Take a rain check
(3) Like a cakewalk
(4) Beat Around the Bush

Q.71 Choose the most appropriate option to fill in the given blanks.
_____ he is young, he is very wise _____ mature for his age.

(1) Even though, or
(2) Though, but
(3) **Although, and ✔**
(4) Although, but

Q.72 Select the option that is the most appropriate antonym of the highlighted word in the given sentence.
He was known as a miser who rarely spent money.

(1) **spendthrift ✔**
(2) stingy
(3) frugal
(4) thrifty

Q.73 Select the most appropriate option to fill in the blank.
_____ large quantity of petrol escaped from the tank.

(1) No article required
(2) **A ✔**
(3) The
(4) An

Q.74 Choose the correct verb to complete the sentence.
Yesterday, she _____ her homework before dinner.

(1) doing
(2) do
(3) does
(4) **did ✔**

Q.75 Choose the correct spelling of the highlighted word from the given options.
The students protested against the sudden seperation of their class sections.

(1) seperaition
(2) saparetion
(3) separasion
(4) **separation ✔**

Q.76

Read the passage carefully and answer the following questions.
The rise of digital communication, from emails to instant messaging, has led to a significant decrease in the volume of physical letters. This posed a major challenge to India Post's traditional business model and its primary source of income. As a direct result of this decline, India Post strategically leveraged its unparalleled network of over 1.5 lakh post offices. It became a key logistics partner for e-commerce companies like Amazon and Flipkart. This partnership has caused a dramatic increase in the volume of packages and parcels handled, effectively compensating for the loss from letter mail.
The expansion of online retail has fundamentally reshaped the purpose of India Post. The boom in e-commerce has provided a new and essential source of revenue for the postal service. India Post has capitalised on its unprecedented network of over 1.5 lakh post offices, especially its significant presence in rural areas, to become a vital logistics partner for major e-commerce platforms like Amazon and Flipkart. This collaboration has resulted in a substantial increase in the volume of packages and parcels it manages, effectively offsetting the decline from traditional mail. India Post is also proactively partnering with various organisations and government initiatives to support rural entrepreneurs, including women-led self-help groups. For small vendors, using India Post allows them to leverage the service's long-standing reputation for trust, which helps build consumer confidence, especially in non-metro areas where the postman is a familiar and respected figure. Furthermore, India Post's services are more

Identify the correct structure of the passage.

(1) compare and contrast
(2) chronological
(3) **cause and effect ✔**
(4) sequence

Q.77

Read the passage carefully and answer the following questions.
The rise of digital communication, from emails to instant messaging, has led to a significant decrease in the volume of physical letters. This posed a major challenge to India Post's traditional business model and its primary source of income. As a direct result of this decline, India Post strategically leveraged its unparalleled network of over 1.5 lakh post offices. It became a key logistics partner for e-commerce companies like Amazon and Flipkart. This partnership has caused a dramatic increase in the volume of packages and parcels handled, effectively compensating for the loss from letter mail.
The expansion of online retail has fundamentally reshaped the purpose of India Post. The boom in e-commerce has provided a new and essential source of revenue for the postal service. India Post has capitalised on its unprecedented network of over 1.5 lakh post offices, especially its significant presence in rural areas, to become a vital logistics partner for major e-commerce platforms like Amazon and Flipkart. This collaboration has resulted in a substantial increase in the volume of packages and parcels it manages, effectively offsetting the decline from traditional mail. India Post is also proactively partnering with various organisations and government initiatives to support rural entrepreneurs, including women-led self-help groups. For small vendors, using India Post allows them to leverage the service's long-standing reputation for trust, which helps build consumer confidence, especially in non-metro areas where the postman is a familiar and respected figure. Furthermore, India Post's services are more

Choose the correct summary of the passage.

(1) The passage summarises that traditional letter system was a convenient mode for transaction.

(2) The passage summarises that the growth of the e-commerce facility has completely revolutionised India Post by making it a crucial financial inclusion partner and a key supporter of local businesses. ✔

(3) The passage summarises that the government has encouraged new platforms like Amazon and Flipkart to flourish by excluding India Post from the logistics and supply chain business.

(4) The passage summarises that the rise of e-commerce has been the sole factor in the decline of traditional letter mail.

QuickSarkari.com | WhatsApp Channel | Telegram: t.me/quick_sarkari

Q.78

Read the passage carefully and answer the following questions.
The rise of digital communication, from emails to instant messaging, has led to a significant decrease in the volume of physical letters. This posed a major challenge to India Post's traditional business model and its primary source of income. As a direct result of this decline, India Post strategically leveraged its unparalleled network of over 1.5 lakh post offices. It became a key logistics partner for e-commerce companies like Amazon and Flipkart. This partnership has caused a dramatic increase in the volume of packages and parcels handled, effectively compensating for the loss from letter mail.
The expansion of online retail has fundamentally reshaped the purpose of India Post. The boom in e-commerce has provided a new and essential source of revenue for the postal service. India Post has capitalised on its unprecedented network of over 1.5 lakh post offices, especially its significant presence in rural areas, to become a vital logistics partner for major e-commerce platforms like Amazon and Flipkart. This collaboration has resulted in a substantial increase in the volume of packages and parcels it manages, effectively offsetting the decline from traditional mail. India Post is also proactively partnering with various organisations and government initiatives to support rural entrepreneurs, including women-led self-help groups. For small vendors, using India Post allows them to leverage the service's long-standing reputation for trust, which helps build consumer confidence, especially in non-metro areas where the postman is a familiar and respected figure. Furthermore, India Post's services are more

Select an appropriate title for the passage.

(1) Financial Inclusion of Rural People: A Key Initiative by the Indian Government

(2) The Decline of Traditional Letter Writing in the Digital Age

(3) **The Evolution of India Post in the Age of e-Commerce ✓**

(4) The Role of Amazon and Flipkart in E-commerce

QuickSarkari.com | WhatsApp Channel | Telegram: t.me/quick_sarkari

Q.79

Read the passage carefully and answer the following questions.
The rise of digital communication, from emails to instant messaging, has led to a significant decrease in the volume of physical letters. This posed a major challenge to India Post's traditional business model and its primary source of income. As a direct result of this decline, India Post strategically leveraged its unparalleled network of over 1.5 lakh post offices. It became a key logistics partner for e-commerce companies like Amazon and Flipkart. This partnership has caused a dramatic increase in the volume of packages and parcels handled, effectively compensating for the loss from letter mail.
The expansion of online retail has fundamentally reshaped the purpose of India Post. The boom in e-commerce has provided a new and essential source of revenue for the postal service. India Post has capitalised on its unprecedented network of over 1.5 lakh post offices, especially its significant presence in rural areas, to become a vital logistics partner for major e-commerce platforms like Amazon and Flipkart. This collaboration has resulted in a substantial increase in the volume of packages and parcels it manages, effectively offsetting the decline from traditional mail. India Post is also proactively partnering with various organisations and government initiatives to support rural entrepreneurs, including women-led self-help groups. For small vendors, using India Post allows them to leverage the service's long-standing reputation for trust, which helps build consumer confidence, especially in non-metro areas where the postman is a familiar and respected figure. Furthermore, India Post's services are more

Which of the following is a fact mentioned in the passage?

(1) For small villages, India Post is a reputed institution; hence, it creates trust between vendors and consumers. ✔

(2) Due to the rise of e-commerce, there is a substantial decrease in the demand for India Post's services.

(3) India Post is expensive and slow in logistical supply.

(4) India Post ensures financial exclusion of rural entrepreneurs.

QuickSarkari.com | WhatsApp Channel | Telegram: t.me/quick_sarkari

Q.80

Read the passage carefully and answer the following questions.
The rise of digital communication, from emails to instant messaging, has led to a significant decrease in the volume of physical letters. This posed a major challenge to India Post's traditional business model and its primary source of income. As a direct result of this decline, India Post strategically leveraged its unparalleled network of over 1.5 lakh post offices. It became a key logistics partner for e-commerce companies like Amazon and Flipkart. This partnership has caused a dramatic increase in the volume of packages and parcels handled, effectively compensating for the loss from letter mail.
The expansion of online retail has fundamentally reshaped the purpose of India Post. The boom in e-commerce has provided a new and essential source of revenue for the postal service. India Post has capitalised on its unprecedented network of over 1.5 lakh post offices, especially its significant presence in rural areas, to become a vital logistics partner for major e-commerce platforms like Amazon and Flipkart. This collaboration has resulted in a substantial increase in the volume of packages and parcels it manages, effectively offsetting the decline from traditional mail. India Post is also proactively partnering with various organisations and government initiatives to support rural entrepreneurs, including women-led self-help groups. For small vendors, using India Post allows them to leverage the service's long-standing reputation for trust, which helps build consumer confidence, especially in non-metro areas where the postman is a familiar and respected figure. Furthermore, India Post's services are more

Select the correct synonym for the word 'leverage' given in the passage.

(1) converge
(2) affluent
(3) **influence ✔**
(4) inflation

Hindi Language and Comprehension

Q.81 दिए गए वाक्य के रिक्त स्थान में क्रिया शब्द का प्रयोग करें - 'शीला ने सुबह सेब था।'

(1) खा
(2) खाता
(3) खाओ
(4) **खाया ✔**

Q.82 दिये गये वाक्य के किस भाग में वर्तनी की त्रुटि है?
प्रेमचंद के साहित्यिक जीवन का चर्मोत्कार्ष उनके गोदान उपन्यास से माना जाता है।

(1) साहित्यिक जीवन का
(2) उनके गोदान उपन्यास से माना जाता है।
(3) प्रेमचंद के
(4) **चर्मोत्कार्ष ✔**

Q.83 निम्न में से 'मुर्गा चुगे , अपना पेट भरे' लोकोक्ति का सही अर्थ कौन-सा है ?

(1) गरीब के लिए थोड़ी हानि भी असह्य है
(2) जोखिम का काम कौन करेगा
(3) **जो भी करता है, अपने लिए ही करता है ✔**
(4) कोई पास नहीं फटक सकता

Q.84 निम्नलिखित वाक्य के रिक्त स्थान में उचित क्रिया शब्द का प्रयोग करें - 'रंजीत निबंध रहा है।'

(1) लिखना
(2) लिखो
(3) **लिख ✔**
(4) लिखवाना

Q.85 दिए गए वाक्य में संख्यावाचक विशेषण शब्द का चयन करके रिक्त स्थान की पूर्ति करें - अंतर्राष्ट्रीय विज्ञान सम्मेलन में----------शोधकर्ताओं ने असाधारण प्रदर्शन किया।

(1) भारतीय
(2) **पाँच हजार ✔**
(3) वरिष्ठ
(4) युवा

Q.86 उपयुक्त कारक चिह्न का चयन कर वाक्य को पूर्ण कीजिए।
मायरा बस ..... स्कूल जाती है।

(1) को
(2) **से ✔**
(3) के लिए
(4) ऊपर

Q.87 उनकी छाती धड़कने लगी ।
उपर्युक्त रेखांकित शब्द का पर्यायवाची क्या होगा ?

(1) फेफड़ा
(2) **वक्ष ✔**
(3) नितंब
(4) यकृत

Q.88 'आदि से अंत तक' वाक्यांश के लिए सार्थक शब्द क्या होगा?

(1) आमरण
(2) **आद्योपांत ✔**
(3) आजीवन
(4) आन्तगर्व

Q.89 निम्न में से 'तीर हाथ से निकल जाना ' मुहावरे का सही अर्थ कौन-सा है ?

(1) झगड़ा खड़ा करना
(2) **स्थिति का वश से बाहर हो जाना ✔**
(3) उपाय निकालना
(4) झूठा कलंक लगाना

Q.90 "चुटकी लेना"- मुहावरे का क्या अर्थ है?

(1) बहुत चालाक होना
(2) **हँसी उड़ाना ✔**
(3) तुरंत काम कर लेना
(4) लाभ ही लाभ होना

Q.91 'आगे नाथ न पीछे पगहा' लोकोक्ति का क्या अर्थ है?

(1) अकेला आदमी लाचार होता है

(2) **जिसका कोई न हो ✔**

(3) हर हालत में एक जैसी विरक्ति

(4) विश्वासपात्र न होना

Q.92 नीचे दिए गए वाक्य व्युत्क्रम में है चार विकल्पों कोई एक वाक्य जो क्रम में है उसका चयन कीजिए।

(1) माँ के सर्दियों में बन गई है आदत झुककर चलने की

(2) आदत बन गई है झुककर चलने की सर्दियों में माँ के

(3) झुककर चलने की बन गई है आदत माँ के सर्दियों में

(4) **सर्दियों में माँ के झुककर चलने की आदत बन गई है ✔**

Q.93 निम्न में से वाक्य में रेखांकित शब्द का विलोम शब्द कौन-सा है ?

'घर का भोजन अच्छा होता है।'

(1) बुराई

(2) अनुज

(3) **बुरा ✔**

(4) सुपाच्य

Q.94 रिक्त स्थान की पूर्ति उपयुक्त गुणवाचक विशेषण से करें- ..... मानवों की सेवा करो।

(1) सभी

(2) इन्हीं

(3) **पीड़ित ✔**

(4) कुछ

Q.95 दिए गए वाक्यों में से वर्तनी की दृष्टि से शुद्ध वाक्य का चयन कीजिए।

(1) मेरे उनसे परिचय कर दो।

(2) **मेरा उनसे परिचय करा दो। ✔**

(3) मेरा उनसे परिजय करा दो।

(4) मेरा उनसे परीचय करा दो।

Q.96

निम्नलिखित प्रश्नों के उत्तर दिए गए गद्यांश के आधार पर दीजिए।

भाषा शब्द संस्कृत के भाष् धातु से बना है। जिसका अर्थ है- बोलना। कक्षा में अध्यापक अपनी बात बोलकर समझाते हैं और छात्र सुनकर उस बात को समझते हैं। बच्चा माता-पिता से बोलकर अपने मन के भाव प्रकट करता है और वे उसकी बात सुनकर समझते हैं। इसी प्रकार, छात्र भी अध्यापक द्वारा समझायी गयी बात को लिखकर व्यक्त करते हैं और अध्यापक उसे पढ़कर मूल्यांकन करते हैं। भावों का आदान-प्रदान करने के लिए सभी प्राणियों द्वारा मन की भाषा का प्रयोग किया जाता है। पशु पक्षियों की बोलियों को भाषा नहीं कहा जाता। इसके द्वारा मनुष्य के भावों, विचारों और भावनाओं को व्यक्त किया जाता है।

भाषा की परिभाषा देना कठिन कार्य है। भाषा वैज्ञानिकों ने इसकी अनेक परिभाषा दी हैं। किन्तु ये परिभाषाएं पूर्ण नहीं हैं। हर एक परिभाषा में कुछ न कुछ त्रुटि पायी जाती है। सार्थक शब्दों के समूह या संकेत को भाषा कहते हैं। यह संकेत स्पष्ट होना चाहिए। मनुष्य के जटिल मनोभावों को भाषा व्यक्त करती है; किन्तु केवल संकेत ही भाषा नहीं हो पाती है।

गद्यांश के लिए उपयुक्त शीर्षक का चयन कीजिए।

(1) परिभाषा

(2) लिंग

(3) व्याकरण

(4) **भाषा ✔**

QuickSarkari.com | WhatsApp Channel | Telegram: t.me/quick_sarkari

Q.97

निम्नलिखित प्रश्नों के उत्तर दिए गए गद्यांश के आधार पर दीजिए।
भाषा शब्द संस्कृत के भाष् धातु से बना है। जिसका अर्थ है- बोलना। कक्षा में अध्यापक अपनी बात बोलकर समझाते हैं और छात्र सुनकर उस बात को समझते हैं। बच्चा माता-पिता से बोलकर अपने मन के भाव प्रकट करता है और वे उसकी बात सुनकर समझते हैं। इसी प्रकार, छात्र भी अध्यापक द्वारा समझायी गयी बात को लिखकर व्यक्त करते हैं और अध्यापक उसे पढ़कर मूल्यांकन करते हैं। भावों का आदान-प्रदान करने के लिए सभी प्राणियों द्वारा मन की भाषा का प्रयोग किया जाता है। पशु पक्षियों की बोलियों को भाषा नहीं कहा जाता। इसके द्वारा मनुष्य के भावों, विचारों और भावनाओं को व्यक्त किया जाता है।
भाषा की परिभाषा देना कठिन कार्य है। भाषा वैज्ञानिकों ने इसकी अनेक परिभाषा दी हैं। किन्तु ये परिभाषाएं पूर्ण नहीं हैं। हर एक परिभाषा में कुछ न कुछ त्रुटि पायी जाती है। सार्थक शब्दों के समूह या संकेत को भाषा कहते हैं। यह संकेत स्पष्ट होना चाहिए। मनुष्य के जटिल मनोभावों को भाषा व्यक्त करती है; किन्तु केवल संकेत ही भाषा नहीं हो पाती है।

निम्न में से भाषा शब्द संस्कृत के किस धातु से बना है ?

(1) वाणी
(2) **भाष् ✔**
(3) भाखा
(4) बोली

Q.98

निम्नलिखित प्रश्नों के उत्तर दिए गए गद्यांश के आधार पर दीजिए।
भाषा शब्द संस्कृत के भाष् धातु से बना है। जिसका अर्थ है- बोलना। कक्षा में अध्यापक अपनी बात बोलकर समझाते हैं और छात्र सुनकर उस बात को समझते हैं। बच्चा माता-पिता से बोलकर अपने मन के भाव प्रकट करता है और वे उसकी बात सुनकर समझते हैं। इसी प्रकार, छात्र भी अध्यापक द्वारा समझायी गयी बात को लिखकर व्यक्त करते हैं और अध्यापक उसे पढ़कर मूल्यांकन करते हैं। भावों का आदान-प्रदान करने के लिए सभी प्राणियों द्वारा मन की भाषा का प्रयोग किया जाता है। पशु पक्षियों की बोलियों को भाषा नहीं कहा जाता। इसके द्वारा मनुष्य के भावों, विचारों और भावनाओं को व्यक्त किया जाता है।
भाषा की परिभाषा देना कठिन कार्य है। भाषा वैज्ञानिकों ने इसकी अनेक परिभाषा दी हैं। किन्तु ये परिभाषाएं पूर्ण नहीं हैं। हर एक परिभाषा में कुछ न कुछ त्रुटि पायी जाती है। सार्थक शब्दों के समूह या संकेत को भाषा कहते हैं। यह संकेत स्पष्ट होना चाहिए। मनुष्य के जटिल मनोभावों को भाषा व्यक्त करती है; किन्तु केवल संकेत ही भाषा नहीं हो पाती है।

भाषा किसे कहते हैं?

(1) शब्द के अर्थ को
(2) वाक्यों के समूह को
(3) **सार्थक शब्दों के समूह को ✔**
(4) अर्थ की निष्पत्ति को

Q.99

निम्नलिखित प्रश्नों के उत्तर दिए गए गद्यांश के आधार पर दीजिए।
भाषा शब्द संस्कृत के भाष् धातु से बना है। जिसका अर्थ है- बोलना। कक्षा में अध्यापक अपनी बात बोलकर समझाते हैं और छात्र सुनकर उस बात को समझते हैं। बच्चा माता-पिता से बोलकर अपने मन के भाव प्रकट करता है और वे उसकी बात सुनकर समझते हैं। इसी प्रकार, छात्र भी अध्यापक द्वारा समझायी गयी बात को लिखकर व्यक्त करते हैं और अध्यापक उसे पढ़कर मूल्यांकन करते हैं। भावों का आदान-प्रदान करने के लिए सभी प्राणियों द्वारा मन की भाषा का प्रयोग किया जाता है। पशु पक्षियों की बोलियों को भाषा नहीं कहा जाता। इसके द्वारा मनुष्य के भावों, विचारों और भावनाओं को व्यक्त किया जाता है।
भाषा की परिभाषा देना कठिन कार्य है। भाषा वैज्ञानिकों ने इसकी अनेक परिभाषा दी हैं। किन्तु ये परिभाषाएं पूर्ण नहीं हैं। हर एक परिभाषा में कुछ न कुछ त्रुटि पायी जाती है। सार्थक शब्दों के समूह या संकेत को भाषा कहते हैं। यह संकेत स्पष्ट होना चाहिए। मनुष्य के जटिल मनोभावों को भाषा व्यक्त करती है; किन्तु केवल संकेत ही भाषा नहीं हो पाती है।

निम्न में से गद्यांश में प्रयुक्त 'त्रुटि' का पर्यायवाची शब्द कौन-सा है ?

(1) दुष्ट
(2) नूह
(3) **चूक ✔**
(4) भूख

Q.100

निम्नलिखित प्रश्नों के उत्तर दिए गए गद्यांश के आधार पर दीजिए।
भाषा शब्द संस्कृत के भाष् धातु से बना है। जिसका अर्थ है- बोलना। कक्षा में अध्यापक अपनी बात बोलकर समझाते हैं और छात्र सुनकर उस बात को समझते हैं। बच्चा माता-पिता से बोलकर अपने मन के भाव प्रकट करता है और वे उसकी बात सुनकर समझते हैं। इसी प्रकार, छात्र भी अध्यापक द्वारा समझायी गयी बात को लिखकर व्यक्त करते हैं और अध्यापक उसे पढ़कर मूल्यांकन करते हैं। भावों का आदान-प्रदान करने के लिए सभी प्राणियों द्वारा मन की भाषा का प्रयोग किया जाता है। पशु पक्षियों की बोलियों को भाषा नहीं कहा जाता। इसके द्वारा मनुष्य के भावों, विचारों और भावनाओं को व्यक्त किया जाता है।
भाषा की परिभाषा देना कठिन कार्य है। भाषा वैज्ञानिकों ने इसकी अनेक परिभाषा दी हैं। किन्तु ये परिभाषाएं पूर्ण नहीं हैं। हर एक परिभाषा में कुछ न कुछ त्रुटि पायी जाती है। सार्थक शब्दों के समूह या संकेत को भाषा कहते हैं। यह संकेत स्पष्ट होना चाहिए। मनुष्य के जटिल मनोभावों को भाषा व्यक्त करती है; किन्तु केवल संकेत ही भाषा नहीं हो पाती है।

निम्न में से गद्यांश में प्रयुक्त 'जटिल' शब्द का विलोम कौन-सा है ?

(1) जंगम
(2) अछूत
(3) **सरल ✔**
(4) चेतन

Assistant Teacher (Primary) – PRT

Q.101 What is the primary aim of peace education as described in the context?
संदर्भ में वर्णित शांति शिक्षा का प्राथमिक उद्देश्य क्या है?

(1) To prioritize economic growth through vocational skill training. / व्यावसायिक कौशल प्रशिक्षण के माध्यम से आर्थिक विकास को प्राथमिकता देना।
(2) To focus on military strategies for national defense preparedness. / राष्ट्रीय रक्षा तैयारी के लिए सैन्य रणनीतियों पर ध्यान केंद्रित करना।
(3) To encourage competition among learners for academic excellence. / शैक्षिक उत्कृष्टता के लिए शिक्षार्थियों के बीच प्रतिस्पर्धा को प्रोत्साहित करना।
(4) **To promote values and attitudes that lead to peaceful coexistence. / शांतिपूर्ण सह-अस्तित्व की ओर ले जाने वाले मूल्यों और अभिवृत्तियों को बढ़ावा देना। ✔**

Q.102 In what way can education promote international understanding?

शिक्षा अंतरराष्ट्रीय सद्भाव को किस प्रकार बढ़ावा दे सकती है?

(1) By emphasizing only national achievements / केवल राष्ट्रीय उपलब्धियों पर बल देकर

(2) By ignoring global issues / वैश्विक मुद्दों की उपेक्षा करके

(3) By teaching respect for cultural differences / सांस्कृतिक भिन्नताओं के प्रति सम्मान सिखाकर ✔

(4) By discouraging foreign language learning / विदेशी भाषा सीखने को हतोत्साहित करके

Q.103 According to Piaget, which stage is characterized by the development of object permanence?

पियाजे के अनुसार, कौन-सी अवस्था वस्तु स्थायित्व के विकास की विशेषता रखती है?

(1) Formal operational stage / औपचारिक संक्रियात्मक अवस्था

(2) Sensorimotor stage / संवेदी-गामक अवस्था ✔

(3) Preoperational stage / पूर्व-संक्रियात्मक अवस्था

(4) Concrete operational stage / मूर्त संक्रियात्मक अवस्था

Q.104 Which stage of human development occurs before birth?

मानव विकास की कौन-सी अवस्था जन्म से पहले होती है?

(1) Early childhood / प्रारंभिक बाल्यावस्था

(2) Late childhood / उत्तर बाल्यावस्था

(3) Prenatal development / जन्मपूर्व विकास ✔

(4) Infancy / शैशवावस्था

Q.105 Which amendment of the Indian Constitution introduced the Right to Free and Compulsory Education?

भारतीय संविधान के किस संशोधन ने निःशुल्क और अनिवार्य शिक्षा का अधिकार प्रस्तुत किया?

(1) 42nd Constitutional Amendment Act, 1976 / 42वाँ संविधान संशोधन अधिनियम, 1976

(2) 86th Constitutional Amendment Act, 2002 / 86वाँ संविधान संशोधन अधिनियम, 2002 ✔

(3) 73rd Constitutional Amendment Act, 1992 / 73वाँ संविधान संशोधन अधिनियम, 1992

(4) 44th Constitutional Amendment Act, 1978 / 44वाँ संविधान संशोधन अधिनियम, 1978

Q.106 What does Sociology of Education aim to provide, according to Ottaway?

ओटावे के अनुसार, शिक्षा का समाजशास्त्र क्या प्रदान करने का लक्ष्य रखता है?

(1) A philosophical framework for learning. / अधिगम के लिए एक दार्शनिक ढाँचा।

(2) A framework for studying education and society. / शिक्षा और समाज के अध्ययन के लिए एक ढाँचा। ✔

(3) A historical account of educational practices. / शैक्षिक प्रथाओं का एक ऐतिहासिक विवरण।

(4) A method for scientific experiments. / वैज्ञानिक प्रयोगों के लिए एक विधि।

Q.107 Which of the following is NOT considered a principle of development?

निम्नलिखित में से किसे विकास का सिद्धांत नहीं माना जाता है?

(1) Development is static in nature / विकास स्थिर प्रकृति का होता है ✔

(2) Development follows a typical pattern / विकास एक विशिष्ट प्रतिरूप का अनुसरण करता है

(3) Development is a lifelong process / विकास एक आजीवन प्रक्रिया है

(4) Development is multidimensional / विकास बहुआयामी होता है

Q.108 A district ensures every child attends school regularly with no dropouts.
Which UEE goal under RTE is this?
एक जिला यह सुनिश्चित करता है कि प्रत्येक बच्चा बिना किसी ड्रॉपआउट के नियमित रूप से विद्यालय जाए।
यह RTE के अंतर्गत UEE का कौन-सा लक्ष्य है?

(1) Universal access and retention / सार्वभौमिक पहुँच और ठहराव ✔
(2) Curriculum expansion / पाठ्यचर्या विस्तार
(3) Teacher promotion / शिक्षक पदोन्नति
(4) Digital literacy / डिजिटल साक्षरता

Q.109 The insistence of the Radhakrishnan Commission on incorporating religious and moral education in schools was based on the principle that educational institutions should:
विद्यालयों में धार्मिक और नैतिक शिक्षा को शामिल करने पर राधाकृष्णन आयोग का आग्रह इस सिद्धांत पर आधारित था कि शैक्षिक संस्थानों को:

(1) Enforce ritual practices of different faiths / विभिन्न धर्मों की कर्मकांडीय प्रथाओं को लागू करना चाहिए
(2) Build ethical character without sectarian influence / सांप्रदायिक प्रभाव के बिना नैतिक चरित्र का निर्माण करना चाहिए ✔
(3) Replace academic subjects with moral science / शैक्षणिक विषयों को नैतिक विज्ञान से प्रतिस्थापित करना चाहिए
(4) Promote a single national religion / एक राष्ट्रीय धर्म को बढ़ावा देना चाहिए

Q.110 When constructing a curriculum for a diverse classroom in India, which factor is most important to ensure inclusivity and relevance?
भारत में एक विविधतापूर्ण कक्षा के लिए पाठ्यचर्या का निर्माण करते समय, समावेशिता और प्रासंगिकता सुनिश्चित करने के लिए कौन-सा कारक सबसे महत्वपूर्ण है?

(1) Strict adherence to a single national language / एक ही राष्ट्रीय भाषा का कड़ाई से पालन
(2) Emphasis on rote memorization of common language / सामान्य भाषा के रटने पर बल
(3) Representation of multiple cultures and languages / अनेक संस्कृतियों और भाषाओं का प्रतिनिधित्व ✔
(4) Exclusive focus on urban and rural issues / केवल शहरी और ग्रामीण मुद्दों पर ध्यान

Q.111 Which factor is most likely to influence a child's personality development during early childhood?
प्रारंभिक बाल्यावस्था के दौरान बच्चे के व्यक्तित्व विकास को कौन-सा कारक सबसे अधिक प्रभावित कर सकता है?

(1) Left-handedness / बाएँ हाथ से काम करना
(2) Season of birth / जन्म का मौसम
(3) Favorite color / पसंदीदा रंग
(4) Parental behavior / माता-पिता का व्यवहार ✔

Q.112 Why is the study of sociology important for teachers?
शिक्षकों के लिए समाजशास्त्र का अध्ययन क्यों महत्वपूर्ण है?

(1) It helps understand students' social backgrounds. / यह विद्यार्थियों की सामाजिक पृष्ठभूमि को समझने में सहायता करता है। ✔
(2) It teaches only basic classroom management. / यह केवल बुनियादी कक्षा प्रबंधन सिखाता है।
(3) It replaces all major educational theories. / यह सभी प्रमुख शैक्षिक सिद्धांतों का स्थान ले लेता है।
(4) It focuses mainly on government policy issues. / यह मुख्य रूप से सरकारी नीति के मुद्दों पर केंद्रित होता है।

Q.113 The caste system is best defined as:

जाति व्यवस्था को सबसे अच्छी तरह किस रूप में परिभाषित किया जाता है?

(1) An endogamous hierarchy of status groups / प्रस्थिति समूहों का एक अंतर्विवाही पदानुक्रम ✔

(2) A set of voluntary professional unions / स्वैच्छिक व्यावसायिक संघों का एक समूह

(3) A temporary social classification / एक अस्थायी सामाजिक वर्गीकरण

(4) A political alliance of groups / समूहों का एक राजनीतिक गठबंधन

Q.114 A child repeatedly fails and is forced to repeat the same class during elementary education. Which provision of the RTE Act is applicable in this case?

प्रारंभिक शिक्षा के दौरान एक बच्चा बार-बार अनुत्तीर्ण होता है और उसे उसी कक्षा को दोहराने के लिए बाध्य किया जाता है। इस स्थिति में RTE अधिनियम का कौन-सा प्रावधान लागू होता है?

(1) Prohibition of detention / रोकने (डिटेंशन) का निषेध ✔

(2) Continuous assessment / सतत मूल्यांकन

(3) School recognition / विद्यालय की मान्यता

(4) Curriculum flexibility / पाठ्यचर्या लचीलापन

Q.115 How do psychologists primarily define personality?

मनोवैज्ञानिक व्यक्तित्व को मुख्य रूप से किस प्रकार परिभाषित करते हैं?

(1) As physical appearance / शारीरिक रूप-रंग के रूप में

(2) As a person's hobbies and interests / किसी व्यक्ति के शौक और रुचियों के रूप में

(3) As a characteristic pattern of thinking, feeling, and acting / सोचने, अनुभव करने और कार्य करने के एक विशिष्ट प्रतिरूप के रूप में ✔

(4) As social status / सामाजिक प्रस्थिति के रूप में

Q.116 Which activity best illustrates the development of fine motor skills in early childhood?

कौन-सी गतिविधि प्रारंभिक बाल्यावस्था में सूक्ष्म गामक कौशलों के विकास को सबसे अच्छी तरह दर्शाती है?

(1) Jumping over a small hurdle / एक छोटी बाधा के ऊपर से कूदना

(2) Climbing up stairs / सीढ़ियाँ चढ़ना

(3) Running across the playground / खेल के मैदान में दौड़ना

(4) Stringing beads onto a thread / धागे में मोती पिरोना ✔

Q.117 Which factor is most directly related to the development of a child's personality?

बच्चे के व्यक्तित्व के विकास से कौन-सा कारक सबसे प्रत्यक्ष रूप से संबंधित है?

(1) Mathematical ability / गणितीय योग्यता

(2) Favorite color / पसंदीदा रंग

(3) Height and weight / लंबाई और भार

(4) Family environment / पारिवारिक वातावरण ✔

Q.118 If a child encounters a completely new food and cannot connect it with their existing schema, what state do they experience?

यदि किसी बच्चे का सामना पूरी तरह से नए भोजन से होता है और वह उसे अपनी मौजूदा स्कीमा से नहीं जोड़ पाता, तो वह किस अवस्था का अनुभव करता है?

(1) Assimilation / आत्मसात्करण

(2) Disequilibrium / असंतुलन ✔

(3) Organization / संगठन

(4) Adaptation / अनुकूलन

Q.119 What essential element does social equality require to ensure fairness in competition for social goods?

सामाजिक वस्तुओं के लिए प्रतिस्पर्धा में निष्पक्षता सुनिश्चित करने के लिए सामाजिक समानता को किस आवश्यक तत्व की आवश्यकता होती है?

(1) Equality of opportunity / अवसर की समानता ✔

(2) Economic redistribution / आर्थिक पुनर्वितरण

(3) Political representation / राजनीतिक प्रतिनिधित्व

(4) Legal equality / विधिक समानता

Q.120 Who was appointed as the Chairman of the University Education Commission set up in 1948-49 in India?

भारत में 1948-49 में गठित विश्वविद्यालय शिक्षा आयोग के अध्यक्ष के रूप में किसे नियुक्त किया गया था?

(1) Dr. D.S. Kothari / डॉ. डी.एस. कोठारी

(2) Dr. Zakir Hussain / डॉ. ज़ाकिर हुसैन

(3) Dr. A. Lakshmanaswami Mudaliar / डॉ. ए. लक्ष्मणस्वामी मुदालियर

(4) Dr. S. Radhakrishnan / डॉ. एस. राधाकृष्णन ✔

Q.121 A teacher takes students outside to observe shadows at different times of the day and record their findings.

Which aspect of experiential learning is reflected here?

एक शिक्षक विद्यार्थियों को दिन के अलग-अलग समय पर छायाओं का अवलोकन करने और अपने निष्कर्ष दर्ज करने के लिए बाहर ले जाता है।

यहाँ अनुभवात्मक अधिगम का कौन-सा पहलू परिलक्षित होता है?

(1) Learning by memorising shadow definitions / छाया की परिभाषाओं को याद करके सीखना

(2) Learning only through textbook diagrams / केवल पाठ्यपुस्तक के आरेखों के माध्यम से सीखना

(3) Learning through lecture notes alone / केवल व्याख्यान नोट्स के माध्यम से सीखना

(4) Learning through direct experience and reflection / प्रत्यक्ष अनुभव और चिंतन के माध्यम से सीखना ✔

Q.122 What is a primary benefit of viewing films with social and educational content?

सामाजिक और शैक्षिक विषय-वस्तु वाली फिल्में देखने का प्राथमिक लाभ क्या है?

(1) It distracts learners from self-awareness and critical reflection. / यह शिक्षार्थियों का ध्यान आत्म-जागरूकता और आलोचनात्मक चिंतन से भटकाती है।

(2) It limits understanding by focusing only on fictional experiences. / यह केवल काल्पनिक अनुभवों पर ध्यान केंद्रित करके समझ को सीमित करती है।

(3) It encourages reflection on values, attitudes, and personal behavior. / यह मूल्यों, अभिवृत्तियों और व्यक्तिगत व्यवहार पर चिंतन को प्रोत्साहित करती है। ✔

(4) It mainly provides entertainment without influencing personal thinking. / यह मुख्य रूप से व्यक्तिगत सोच को प्रभावित किए बिना मनोरंजन प्रदान करती है।

Q.123 What is a primary objective of teaching mathematics at the elementary stage according to educational goals that emphasize foundational skills?

आधारभूत कौशलों पर बल देने वाले शैक्षिक लक्ष्यों के अनुसार, प्रारंभिक स्तर पर गणित शिक्षण का प्राथमिक उद्देश्य क्या है?

(1) To ensure students memorize complex mathematical formulas and equations early on without contextual understanding / यह सुनिश्चित करना कि विद्यार्थी प्रारंभ में ही संदर्भगत समझ के बिना जटिल गणितीय सूत्रों और समीकरणों को याद कर लें

(2) To help learners develop fundamental arithmetic skills such as addition, subtraction, multiplication, and division efficiently / शिक्षार्थियों को जोड़, घटाव, गुणा और भाग जैसे मूलभूत अंकगणितीय कौशलों को कुशलतापूर्वक विकसित करने में सहायता करना ✔

(3) To focus exclusively on geometry and spatial reasoning while postponing numerical operations for later grades / संख्यात्मक संक्रियाओं को बाद की कक्षाओं के लिए स्थगित करते हुए केवल ज्यामिति और स्थानिक तर्क पर ध्यान केंद्रित करना

(4) To train students to use advanced technology tools as the main approach for mathematical problem-solving / गणितीय समस्या-समाधान के मुख्य दृष्टिकोण के रूप में उन्नत प्रौद्योगिकी उपकरणों का उपयोग करने के लिए विद्यार्थियों को प्रशिक्षित करना

Q.124 A mindfulness exercise invites students to slowly eat a raisin while paying attention to its texture, taste, and smell. This approach primarily introduces:

एक सचेतनता (माइंडफुलनेस) अभ्यास में विद्यार्थियों को किशमिश की बनावट, स्वाद और गंध पर ध्यान देते हुए उसे धीरे-धीरे खाने के लिए कहा जाता है। यह दृष्टिकोण मुख्य रूप से किससे परिचित कराता है?

(1) Nutritional evaluation of food ingredients for sensory awareness / संवेदी जागरूकता के लिए खाद्य सामग्री का पोषण संबंधी मूल्यांकन

(2) Rapid eating to increase the efficiency of sensory organs / संवेदी अंगों की दक्षता बढ़ाने के लिए तीव्र गति से खाना

(3) Routine-based eating habits and behaviour patterns / दिनचर्या-आधारित खान-पान की आदतें और व्यवहार प्रतिरूप

(4) Mindful sensory awareness and present-moment attention / सचेत संवेदी जागरूकता और वर्तमान क्षण पर ध्यान ✔

Q.125 What is a primary benefit of learning to observe oneself?

स्वयं का अवलोकन करना सीखने का प्राथमिक लाभ क्या है?

(1) Avoiding self-reflection / आत्म-चिंतन से बचना

(2) Making self-improvement. / आत्म-सुधार करना। ✔

(3) Observing others' patterns / दूसरों के प्रतिरूपों का अवलोकन करना

(4) Suppressing emotions / भावनाओं का दमन करना

Q.126 Which principle of teaching emphasizes starting instruction from what is already familiar to the learner?

शिक्षण का कौन-सा सिद्धांत शिक्षार्थी के लिए पहले से परिचित विषय से अनुदेशन प्रारंभ करने पर बल देता है?

(1) Ensuring active participation through hands-on learning activities daily. / प्रतिदिन प्रत्यक्ष (हैंड्स-ऑन) अधिगम गतिविधियों के माध्यम से सक्रिय सहभागिता सुनिश्चित करना।

(2) Proceeding from known to unknown for building new knowledge effectively. / नए ज्ञान का प्रभावी ढंग से निर्माण करने के लिए ज्ञात से अज्ञात की ओर बढ़ना। ✔

(3) Accommodating individual differences in abilities and learning paces. / योग्यताओं और अधिगम गति में वैयक्तिक भिन्नताओं को समायोजित करना।

(4) Establishing correlations between subjects for integrated understanding. / एकीकृत समझ के लिए विषयों के बीच सहसंबंध स्थापित करना।

Q.127 A researcher is comparing the influence of family and student councils on learners' values. Which distinction between social groups is most relevant for understanding the nature of these influences?

एक शोधकर्ता शिक्षार्थियों के मूल्यों पर परिवार और छात्र परिषदों के प्रभाव की तुलना कर रहा है। इन प्रभावों की प्रकृति को समझने के लिए सामाजिक समूहों के बीच कौन-सा भेद सबसे अधिक प्रासंगिक है?

(1) Statics and dynamics / स्थैतिकी और गतिकी

(2) Formal and informal sanctions / औपचारिक और अनौपचारिक प्रतिबंध

(3) Primary and secondary groups / प्राथमिक और द्वितीयक समूह ✔

(4) Role and status / भूमिका और प्रस्थिति

Q.128 An educator designs a lesson plan that emphasizes equitable participation, considers students' varied learning needs, and adapts resources for all learners. Which aim of pedagogy across the curriculum is best represented here?

एक शिक्षक एक ऐसी पाठ योजना तैयार करता है जो न्यायसंगत सहभागिता पर बल देती है, विद्यार्थियों की विविध अधिगम आवश्यकताओं पर विचार करती है, और सभी शिक्षार्थियों के लिए संसाधनों को अनुकूलित करती है। यहाँ पाठ्यचर्या में शिक्षाशास्त्र का कौन-सा लक्ष्य सबसे अच्छी तरह प्रदर्शित होता है?

(1) Focusing solely on content delivery / केवल विषय-वस्तु प्रस्तुत करने पर ध्यान केंद्रित करना

(2) Encouraging individual competition / वैयक्तिक प्रतिस्पर्धा को प्रोत्साहित करना

(3) Promoting equity and inclusive instruction / समता और समावेशी अनुदेशन को बढ़ावा देना ✔

(4) Prioritizing uniform teaching methods / एकसमान शिक्षण विधियों को प्राथमिकता देना

Q.129 What should a graduate student prioritize when journal writing for self- understanding?

आत्म-बोध के लिए जर्नल लेखन करते समय एक स्नातक विद्यार्थी को किसे प्राथमिकता देनी चाहिए?

(1) Focusing on others' issues / दूसरों के मुद्दों पर ध्यान केंद्रित करना

(2) Creating fictional stories / काल्पनिक कहानियाँ गढ़ना

(3) Honest expression of thoughts / विचारों की ईमानदार अभिव्यक्ति ✔

(4) Writing for entertainment / मनोरंजन के लिए लिखना

Q.130 A curriculum designer is creating early literacy materials for a linguistically diverse district. Which approach best supports inclusive education and national integration according to the scope of multilingualism?

एक पाठ्यचर्या निर्माता भाषाई रूप से विविधतापूर्ण जिले के लिए प्रारंभिक साक्षरता सामग्री तैयार कर रहा है। बहुभाषिकता के विस्तार-क्षेत्र के अनुसार कौन-सा दृष्टिकोण समावेशी शिक्षा और राष्ट्रीय एकता का सबसे अच्छा समर्थन करता है?

(1) Developing resources in multiple home and school languages / अनेक घरेलू और विद्यालयी भाषाओं में संसाधन विकसित करना ✔

(2) Designing resources only in the regional official language / केवल क्षेत्रीय राजभाषा में संसाधन तैयार करना

(3) Focusing solely on English for global competitiveness / वैश्विक प्रतिस्पर्धात्मकता के लिए केवल अंग्रेजी पर ध्यान केंद्रित करना

(4) Using only visual aids to avoid language issues / भाषा संबंधी समस्याओं से बचने के लिए केवल दृश्य साधनों का उपयोग करना

QuickSarkari.com | WhatsApp Channel | Telegram: t.me/quick_sarkari

Q.131 Which of the following best captures the overall essence of what language is?

निम्नलिखित में से कौन-सा कथन भाषा के समग्र सार को सबसे अच्छी तरह व्यक्त करता है?

(1) A structured system used for communication and cultural interaction. / संप्रेषण और सांस्कृतिक अंतःक्रिया के लिए उपयोग की जाने वाली एक संरचित व्यवस्था। ✔

(2) A purely instinctive system of sounds used by humans and animals alike. / मनुष्यों और पशुओं दोनों द्वारा समान रूप से उपयोग की जाने वाली ध्वनियों की एक पूर्णतः सहज व्यवस्था।

(3) A set of rigid rules that determine how all humans must communicate. / कठोर नियमों का एक समूह जो यह निर्धारित करता है कि सभी मनुष्यों को किस प्रकार संप्रेषण करना चाहिए।

(4) A fixed collection of words whose meanings do not change over time. / शब्दों का एक निश्चित संग्रह जिनके अर्थ समय के साथ नहीं बदलते।

Q.132 Which statement most accurately reflects the scope of multilingualism in early literacy development?

कौन-सा कथन प्रारंभिक साक्षरता विकास में बहुभाषिकता के विस्तार-क्षेत्र को सबसे सटीक रूप से दर्शाता है?

(1) Multilingualism is limited to classroom interactions with foreign languages. / बहुभाषिकता विदेशी भाषाओं के साथ कक्षा की अंतःक्रियाओं तक सीमित है।

(2) Multilingualism refers only to the use of regional dialects at home. / बहुभाषिकता का तात्पर्य केवल घर पर क्षेत्रीय बोलियों के उपयोग से है।

(3) Multilingualism is the ability to use and understand more than one language. / बहुभाषिकता एक से अधिक भाषाओं का उपयोग करने और उन्हें समझने की क्षमता है। ✔

(4) Multilingualism involves learning new vocabulary in one language only. / बहुभाषिकता में केवल एक भाषा में नई शब्दावली सीखना शामिल है।

Q.133 Which scenario best illustrates an issue about multilingualism in families?

कौन-सा परिदृश्य परिवारों में बहुभाषिकता से संबंधित समस्या को सबसे अच्छी तरह दर्शाता है?

(1) Grandchildren and grandparents not understanding each other due to speaking different languages / अलग-अलग भाषाएँ बोलने के कारण पोते-पोतियों और दादा-दादी का एक-दूसरे को न समझ पाना ✔

(2) Parents teaching only one language at home / माता-पिता द्वारा घर पर केवल एक भाषा सिखाना

(3) Siblings learning the same new language at school / भाई-बहनों द्वारा विद्यालय में एक ही नई भाषा सीखना

(4) All family members speaking the same language fluently / परिवार के सभी सदस्यों द्वारा एक ही भाषा धाराप्रवाह बोलना

Q.134 Experiential learning is closely aligned with _____.

अनुभवात्मक अधिगम _____ से निकटता से संबंधित है।

(1) Purely transmission-based instruction / पूर्णतः संचरण-आधारित अनुदेशन

(2) Rote-based drill learning / रटंत-आधारित अभ्यास अधिगम

(3) Constructivist learning theory / रचनावादी अधिगम सिद्धांत ✔

(4) Strict behaviourist conditioning / कठोर व्यवहारवादी अनुबंधन

Q.135 How does a reflective journal help students grow over time?

एक चिंतनशील जर्नल समय के साथ विद्यार्थियों के विकास में किस प्रकार सहायता करता है?

(1) By memorizing facts and textbook content / तथ्यों और पाठ्यपुस्तक की विषय-वस्तु को याद करके

(2) By promoting personal growth and perspective change / व्यक्तिगत विकास और दृष्टिकोण परिवर्तन को बढ़ावा देकर ✔

(3) By completing homework more quickly daily / प्रतिदिन गृहकार्य अधिक शीघ्रता से पूरा करके

(4) By repeating lessons without personal analysis / व्यक्तिगत विश्लेषण के बिना पाठों को दोहराकर

Q.136 During a group exercise, members begin to divide tasks based on their strengths, but disagreements about role assignments occasionally disrupt progress. What is the most likely pattern of behavior being exhibited by this group?

एक समूह अभ्यास के दौरान, सदस्य अपनी क्षमताओं के आधार पर कार्यों को बाँटना शुरू करते हैं, लेकिन भूमिका निर्धारण को लेकर असहमतियाँ कभी-कभी प्रगति में बाधा डालती हैं। इस समूह द्वारा प्रदर्शित व्यवहार का सबसे संभावित प्रतिरूप क्या है?

(1) Role negotiation leading to temporary conflict / भूमिका पर समझौता-वार्ता, जिससे अस्थायी संघर्ष होता है ✓

(2) Members refusing all assigned roles / सदस्यों द्वारा सभी सौंपी गई भूमिकाओं को अस्वीकार करना

(3) Complete harmony and agreement at all times / हर समय पूर्ण सामंजस्य और सहमति

(4) Static roles with no negotiation / बिना किसी समझौता-वार्ता के स्थिर भूमिकाएँ

Q.137 How can literature foster creativity in language learning?

साहित्य भाषा अधिगम में सृजनात्मकता को किस प्रकार बढ़ावा दे सकता है?

(1) By focusing on memorizing factual information. / तथ्यात्मक जानकारी को याद करने पर ध्यान केंद्रित करके।

(2) By having students repeat sentences. / विद्यार्थियों से वाक्यों को दोहरवाकर।

(3) By inspiring students to write their own stories. / विद्यार्थियों को अपनी कहानियाँ लिखने के लिए प्रेरित करके। ✓

(4) By correcting students' grammar mistakes. / विद्यार्थियों की व्याकरण संबंधी त्रुटियों को सुधारकर।

Q.138 When students discuss an experiment in pairs and share their findings with the class, what classroom function of language is being demonstrated?

जब विद्यार्थी जोड़ियों में किसी प्रयोग पर चर्चा करते हैं और अपने निष्कर्ष कक्षा के साथ साझा करते हैं, तो भाषा का कौन-सा कक्षायी प्रकार्य प्रदर्शित होता है?

(1) Only a way to memorize content / विषय-वस्तु को याद करने का केवल एक तरीका

(2) A tool for communication and sharing ideas / संप्रेषण और विचारों को साझा करने का एक साधन ✓

(3) A method to avoid interaction / अंतःक्रिया से बचने की एक विधि

(4) A tool for silent reading only / केवल मौन पठन का एक साधन

Q.139 A teacher encourages students to mediate peer conflicts using consensus- building exercises inspired by Gandhian values. What principle of peace education is most evident in this instructional approach?

एक शिक्षक विद्यार्थियों को गांधीवादी मूल्यों से प्रेरित सर्वसम्मति-निर्माण अभ्यासों का उपयोग करके साथियों के बीच के विवादों में मध्यस्थता करने के लिए प्रोत्साहित करता है। इस अनुदेशनात्मक दृष्टिकोण में शांति शिक्षा का कौन-सा सिद्धांत सबसे अधिक स्पष्ट है?

(1) Fostering conflict resolution and consensus / संघर्ष समाधान और सर्वसम्मति को बढ़ावा देना ✓

(2) Promoting rote memorization / रटने को बढ़ावा देना

(3) Reinforcing hierarchical classroom norms / पदानुक्रमित कक्षा मानदंडों को सुदृढ़ करना

(4) Prioritizing individual achievement / वैयक्तिक उपलब्धि को प्राथमिकता देना

Q.140 A teacher ensures fair treatment and equal participation opportunities for all students. This action reflects which professional principle?

एक शिक्षक सभी विद्यार्थियों के लिए निष्पक्ष व्यवहार और सहभागिता के समान अवसर सुनिश्चित करता है। यह कार्य किस व्यावसायिक सिद्धांत को दर्शाता है?

(1) Classroom authority in managing student behavior / विद्यार्थियों के व्यवहार के प्रबंधन में कक्षायी प्राधिकार

(2) Ethical responsibility toward students and fairness / विद्यार्थियों के प्रति नैतिक उत्तरदायित्व और निष्पक्षता ✓

(3) Strict adherence to syllabus completion timelines / पाठ्यक्रम पूर्ण करने की समय-सीमा का कड़ाई से पालन

(4) Emphasis on exam results and academic ranking / परीक्षा परिणामों और शैक्षणिक रैंकिंग पर बल

Q.141 What is a common role of an NGO in supporting schools?

विद्यालयों को सहायता प्रदान करने में किसी NGO की सामान्य भूमिका क्या है?

(1) Organizing parent-teacher meetings / अभिभावक-शिक्षक बैठकों का आयोजन करना

(2) Managing school discipline / विद्यालय अनुशासन का प्रबंधन करना

(3) Setting the school curriculum / विद्यालय की पाठ्यचर्या निर्धारित करना

(4) **Providing educational resources and support / शैक्षिक संसाधन और सहायता प्रदान करना ✔**

Q.142 In Vaillant's hierarchy of defenses, which classroom behavior best exemplifies a mature defense that enhances learning while managing anxiety about performance?

वैलेंट के रक्षा-तंत्रों के पदानुक्रम में, कौन-सा कक्षायी व्यवहार उस परिपक्व रक्षा-तंत्र का सबसे अच्छा उदाहरण है जो प्रदर्शन संबंधी चिंता को संभालते हुए अधिगम को बढ़ाता है?

(1) A student who procrastinates before an exam and blames the teacher's "trick questions" after scoring poorly / एक विद्यार्थी जो परीक्षा से पहले टालमटोल करता है और कम अंक आने के बाद शिक्षक के "पेचीदा प्रश्नों" को दोष देता है

(2) **A student who channels pre-exam anxiety into organizing a peer review session and reworking practice problems / एक विद्यार्थी जो परीक्षा-पूर्व चिंता को साथियों के साथ समीक्षा सत्र आयोजित करने और अभ्यास प्रश्नों को दोबारा हल करने में लगाता है ✔**

(3) A student who avoids presentations by frequently calling in sick on speaking days / एक विद्यार्थी जो बोलने वाले दिनों में बार-बार बीमारी की सूचना देकर प्रस्तुतियों से बचता है

(4) A student who insists the grading rubric is unfair and argues for points without reviewing the feedback / एक विद्यार्थी जो इस बात पर अड़ा रहता है कि ग्रेडिंग रूब्रिक अनुचित है और प्रतिपुष्टि की समीक्षा किए बिना अंकों के लिए बहस करता है

Q.143 What is the primary effect of television advertising on children?

बच्चों पर टेलीविजन विज्ञापनों का प्राथमिक प्रभाव क्या है?

(1) Improves academic performance / शैक्षणिक प्रदर्शन में सुधार करता है

(2) Encourages outdoor play / बाहरी खेलों को प्रोत्साहित करता है

(3) **Influences buying behavior / खरीदारी व्यवहार को प्रभावित करता है ✔**

(4) Reduces creativity / सृजनात्मकता को कम करता है

Q.144 During the preoperational stage, what is a common limitation in a child's thinking?

पूर्व-संक्रियात्मक अवस्था के दौरान, बच्चे की सोच में एक सामान्य सीमा क्या होती है?

(1) Logical reasoning / तार्किक चिंतन

(2) **Egocentrism / आत्मकेंद्रिता ✔**

(3) Problem solving / समस्या समाधान

(4) Multiple reasoning / बहुविध तर्कणा

Q.145 Which of the following sentences is grammatically correct?

निम्नलिखित में से कौन-सा वाक्य व्याकरणिक रूप से सही है?

(1) She do not like to attend meetings regularly.

(2) **She does not like to attend meetings regularly. ✔**

(3) She does not likes to attend meetings regularly.

(4) She did not likes to attend meetings regularly.

Q.146 Which concept explains the preference for sons in some Indian communities?

कुछ भारतीय समुदायों में पुत्रों को वरीयता दिए जाने की व्याख्या कौन-सी अवधारणा करती है?

(1) Economic modernization / आर्थिक आधुनिकीकरण

(2) Gender neutrality / लैंगिक तटस्थता

(3) **Patriarchy / पितृसत्ता ✔**

(4) Matrilineal descent / मातृवंशीय वंशानुक्रम

Q.147 Which of the following is not a characteristic of an educator?

निम्नलिखित में से कौन-सी एक शिक्षक की विशेषता नहीं है?

(1) Involves a teaching profession / शिक्षण व्यवसाय से जुड़ा होता है

(2) Performs a social service / एक सामाजिक सेवा करता है

(3) **Low degree of autonomy / स्वायत्तता की निम्न मात्रा ✔**

(4) Common code of conduct / सामान्य आचार संहिता

Q.148 A teacher who notices a student's unspoken anxiety and responds appropriately is showing:

एक शिक्षक जो किसी विद्यार्थी की अव्यक्त चिंता को पहचानता है और उचित प्रतिक्रिया देता है, वह किसका प्रदर्शन कर रहा है?

(1) Competitiveness / प्रतिस्पर्धात्मकता

(2) Creativity / सृजनात्मकता

(3) **Empathy / समानुभूति ✔**

(4) Discipline / अनुशासन

Q.149 From the perspective of grammatical correctness, subject–verb agreement requires that:

व्याकरणिक शुद्धता की दृष्टि से, कर्ता–क्रिया अन्विति के लिए आवश्यक है कि:

(1) **The verb matches the subject in number / क्रिया वचन में कर्ता से मेल खाए ✔**

(2) The verb adapts to the discourse context / क्रिया प्रोक्ति (डिस्कोर्स) संदर्भ के अनुसार ढल जाए

(3) The verb reflects the speaker's intention / क्रिया वक्ता के आशय को प्रतिबिंबित करे

(4) The verb aligns with pragmatic meaning / क्रिया व्यावहारिक (प्रैग्मैटिक) अर्थ के अनुरूप हो

Q.150 During a classroom observation, a teacher notes that children aged 3-4 are playing side-by-side with clay, occasionally exchanging tools and commenting on each other's work, but without a unified goal. What type of social play best describes their interaction?

कक्षा अवलोकन के दौरान, एक शिक्षक देखता है कि 3-4 वर्ष के बच्चे पास-पास बैठकर मिट्टी से खेल रहे हैं, कभी-कभी औज़ारों का आदान-प्रदान करते हैं और एक-दूसरे के कार्य पर टिप्पणी करते हैं, परंतु उनका कोई एकीकृत लक्ष्य नहीं है। कौन-सा सामाजिक खेल उनकी अंतःक्रिया का सबसे अच्छा वर्णन करता है?

(1) Parallel play with minimal interaction / न्यूनतम अंतःक्रिया के साथ समानांतर खेल

(2) Solitary play with independent focus / स्वतंत्र ध्यान के साथ एकाकी खेल

(3) **Associative play with shared materials / साझा सामग्री के साथ साहचर्य खेल ✔**

(4) Cooperative play with assigned roles / निर्धारित भूमिकाओं के साथ सहयोगात्मक खेल

Q.151 Which of the following assessment tasks would best evaluate students' ability to apply the concept of area in a real-life context?

निम्नलिखित में से कौन-सा आकलन कार्य वास्तविक जीवन के संदर्भ में क्षेत्रफल की अवधारणा को लागू करने की विद्यार्थियों की क्षमता का सबसे अच्छा मूल्यांकन करेगा?

(1) Reciting the formula for area of a rectangle from memory / स्मृति से आयत के क्षेत्रफल का सूत्र सुनाना

(2) **Designing a plan to cover a classroom floor with carpet tiles / कक्षा के फर्श को कालीन टाइलों से ढकने की योजना बनाना ✔**

(3) Listing different units used for measuring area / क्षेत्रफल मापने के लिए प्रयुक्त विभिन्न इकाइयों की सूची बनाना

(4) Copying a diagram of a square onto grid paper / ग्रिड पेपर पर एक वर्ग का आरेख उतारना

Q.152 Children cover a sheet of paper with different leaves and count them. Which mathematical ideas are best connected through this activity?

बच्चे कागज़ की एक शीट को विभिन्न पत्तियों से ढकते हैं और उन्हें गिनते हैं। इस गतिविधि के माध्यम से कौन-से गणितीय विचार सबसे अच्छी तरह जुड़ते हैं?

(1) **Measurement and data handling / मापन और आँकड़ों का प्रबंधन ✔**

(2) Seriation and conservation / क्रमबद्धता और संरक्षण

(3) Volume and proportionality / आयतन और समानुपातिकता

(4) Estimation and circumference / आकलन और परिधि

Q.153 Children pretend to run a shop during free play. This is an example of:

मुक्त खेल के दौरान बच्चे दुकान चलाने का अभिनय करते हैं। यह किसका उदाहरण है?

(1) Solitary play / एकाकी खेल

(2) Constructive play / रचनात्मक खेल

(3) **Symbolic/pretend play / प्रतीकात्मक/काल्पनिक खेल ✔**

(4) Physical play / शारीरिक खेल

Q.154 A student shares a personal problem that affects learning. What should a teacher do to act as a facilitator while staying professional?

एक विद्यार्थी एक व्यक्तिगत समस्या साझा करता है जो उसके अधिगम को प्रभावित करती है। व्यावसायिक बने रहते हुए एक सुविधाप्रदाता के रूप में कार्य करने के लिए शिक्षक को क्या करना चाहिए?

(1) Solve every part of the student's personal problem / विद्यार्थी की व्यक्तिगत समस्या के प्रत्येक भाग का समाधान करना

(2) Ignore the concern and focus only on schoolwork / चिंता की उपेक्षा करना और केवल विद्यालयी कार्य पर ध्यान देना

(3) Tell the class to help solve the student's problem / कक्षा को विद्यार्थी की समस्या सुलझाने में सहायता करने के लिए कहना

(4) **Listen kindly and guide the student to proper help / दयालुतापूर्वक सुनना और विद्यार्थी को उचित सहायता की ओर मार्गदर्शित करना ✔**

Q.155 A school invites parents to participate in decision-making about student welfare and school activities through regular meetings. This practice best reflects the role of which of the following?

एक विद्यालय नियमित बैठकों के माध्यम से विद्यार्थी कल्याण और विद्यालयी गतिविधियों से संबंधित निर्णय लेने में भाग लेने के लिए अभिभावकों को आमंत्रित करता है। यह प्रथा निम्नलिखित में से किसकी भूमिका को सबसे अच्छी तरह दर्शाती है?

(1) Inspection committees / निरीक्षण समितियाँ

(2) **Parent Teacher Association / अभिभावक शिक्षक संघ ✔**

(3) Examination boards / परीक्षा बोर्ड

(4) Private coaching agencies / निजी कोचिंग एजेंसियाँ

Q.156 Which sentence correctly uses subject–verb agreement?

कौन-सा वाक्य कर्ता–क्रिया अन्विति का सही प्रयोग करता है?

(1) The team is play very well in the match.

(2) **The team plays very well in the match. ✔**

(3) The team play very well in the match.

(4) The team playing very well in the match.

Q.157 A media studies class is asked to compare commercial ads for junk food with social advertisements about child rights. Which key difference should students focus on to understand their broader societal impact?

मीडिया अध्ययन की एक कक्षा को जंक फूड के व्यावसायिक विज्ञापनों की तुलना बाल अधिकारों के बारे में सामाजिक विज्ञापनों से करने के लिए कहा जाता है। उनके व्यापक सामाजिक प्रभाव को समझने के लिए विद्यार्थियों को किस प्रमुख अंतर पर ध्यान केंद्रित करना चाहिए?

(1) Social ads are usually longer in duration / सामाजिक विज्ञापन सामान्यतः अवधि में लंबे होते हैं

(2) **Commercial ads favor wealth, social ads promote equity / व्यावसायिक विज्ञापन संपत्ति का पक्ष लेते हैं, सामाजिक विज्ञापन समता को बढ़ावा देते हैं ✔**

(3) Junk food ads are banned in urban areas / शहरी क्षेत्रों में जंक फूड के विज्ञापन प्रतिबंधित हैं

(4) Social ads use more celebrities than commercial ads / सामाजिक विज्ञापन व्यावसायिक विज्ञापनों की तुलना में अधिक प्रसिद्ध हस्तियों का उपयोग करते हैं

Q.158 A teacher asks students to estimate the number of books needed to cover a desktop, then verifies it by laying the books down. This activity primarily aids the child in developing the foundational idea of:

एक शिक्षक विद्यार्थियों से एक डेस्क की ऊपरी सतह को ढकने के लिए आवश्यक पुस्तकों की संख्या का अनुमान लगाने के लिए कहता है, फिर पुस्तकों को रखकर इसका सत्यापन करता है। यह गतिविधि मुख्य रूप से बच्चे को किस आधारभूत विचार को विकसित करने में सहायता करती है?

(1) Standardized capacity / मानकीकृत धारिता

(2) **Tiling unit area / टाइलिंग इकाई क्षेत्रफल ✔**

(3) Volume comparison / आयतन की तुलना

(4) Linear comparison / रैखिक तुलना

Q.159 How does mastering English language skills benefit someone aiming for a global career?

अंग्रेजी भाषा कौशलों में दक्षता प्राप्त करना वैश्विक करियर का लक्ष्य रखने वाले व्यक्ति को किस प्रकार लाभ पहुँचाता है?

(1) It focuses only on local markets / यह केवल स्थानीय बाज़ारों पर केंद्रित होता है

(2) **It enables effective communication and access to international opportunities / यह प्रभावी संप्रेषण और अंतरराष्ट्रीय अवसरों तक पहुँच को सक्षम बनाता है ✔**

(3) It replaces the need for technical skills / यह तकनीकी कौशलों की आवश्यकता का स्थान ले लेता है

(4) It guarantees immediate promotion in all jobs / यह सभी नौकरियों में तत्काल पदोन्नति की गारंटी देता है

Q.160 A teacher asks students to design a model of a simple water purification system using discarded plastic bottles and sand. Which principle does this activity exemplify?

एक शिक्षक विद्यार्थियों से फेंकी हुई प्लास्टिक की बोतलों और रेत का उपयोग करके एक सरल जल शोधन प्रणाली का मॉडल तैयार करने के लिए कहता है। यह गतिविधि किस सिद्धांत का उदाहरण है?

(1) Demonstrating established scientific facts in classrooms / कक्षाओं में स्थापित वैज्ञानिक तथ्यों का प्रदर्शन करना

(2) **Application of scientific concepts using low cost materials / कम लागत वाली सामग्री का उपयोग करके वैज्ञानिक अवधारणाओं का अनुप्रयोग ✔**

(3) Demonstrating laboratory experiments only with expensive kits / केवल महंगी किटों से प्रयोगशाला प्रयोगों का प्रदर्शन करना

(4) Implementing discovery-oriented tasks as field-work / खोज-उन्मुख कार्यों को क्षेत्र-कार्य के रूप में लागू करना

Q.161 How does education help vulnerable populations?

शिक्षा सुभेद्य (कमजोर) वर्गों की किस प्रकार सहायता करती है?

(1) By increasing competition among individuals / व्यक्तियों के बीच प्रतिस्पर्धा बढ़ाकर

(2) By promoting physical activities only / केवल शारीरिक गतिविधियों को बढ़ावा देकर

(3) **By reducing poverty and creating better perspectives / गरीबी कम करके और बेहतर दृष्टिकोण विकसित करके ✔**

(4) By eliminating all social conflicts / सभी सामाजिक संघर्षों को समाप्त करके

Q.162 A teacher asks students, "How can we reduce waste in our school?" and accepts multiple reasonable answers. This question is an example of which of the following?

एक शिक्षक विद्यार्थियों से पूछता है, "हम अपने विद्यालय में अपशिष्ट को कैसे कम कर सकते हैं?" और अनेक तर्कसंगत उत्तरों को स्वीकार करता है। यह प्रश्न निम्नलिखित में से किसका उदाहरण है?

(1) Drill-based assessment / अभ्यास-आधारित आकलन

(2) Objective-type testing / वस्तुनिष्ठ प्रकार का परीक्षण

(3) **Open-ended evaluation / मुक्त-उत्तरीय मूल्यांकन ✔**

(4) Memorisation testing / स्मरण परीक्षण

Q.163 Which ICT tool best supports collaborative story writing in a primary English class?

प्राथमिक अंग्रेजी कक्षा में सहयोगात्मक कहानी लेखन का सबसे अच्छा समर्थन कौन-सा ICT उपकरण करता है?

(1) Interactive whiteboard / इंटरैक्टिव व्हाइटबोर्ड

(2) WhatsApp / व्हाट्सऐप

(3) **Google Docs / गूगल डॉक्स ✔**

(4) YouTube / यूट्यूब

Q.164 A principal wants to improve student engagement and achievement by applying pedagogical leadership. Which action aligns best with this goal?

एक प्रधानाचार्य शैक्षणिक नेतृत्व को लागू करके विद्यार्थियों की संलग्नता और उपलब्धि में सुधार करना चाहते हैं। कौन-सा कार्य इस लक्ष्य के साथ सबसे अधिक संरेखित है?

(1) Emphasizing strict discipline / कठोर अनुशासन पर बल देना

(2) **Promoting reflective teaching / चिंतनशील शिक्षण को बढ़ावा देना ✔**

(3) Using fixed lesson plans / निश्चित पाठ योजनाओं का उपयोग करना

(4) Increasing teacher oversight / शिक्षकों की निगरानी बढ़ाना

Q.165 When evaluating the effectiveness of low cost-no cost teaching-learning materials in environmental studies, which criterion is most important to ensure meaningful learning outcomes for diverse learners?

पर्यावरण अध्ययन में कम लागत-बिना लागत वाली शिक्षण-अधिगम सामग्री की प्रभावशीलता का मूल्यांकन करते समय, विविध शिक्षार्थियों के लिए सार्थक अधिगम परिणाम सुनिश्चित करने हेतु कौन-सी कसौटी सबसे महत्वपूर्ण है?

(1) The materials are used only by teachers for classroom demonstration / सामग्री का उपयोग केवल शिक्षकों द्वारा कक्षा में प्रदर्शन के लिए किया जाता है

(2) The materials are sourced exclusively from outside the community / सामग्री विशेष रूप से समुदाय के बाहर से प्राप्त की जाती है

(3) **The materials adapt to learner needs and encourage active participation / सामग्री शिक्षार्थियों की आवश्यकताओं के अनुरूप ढलती है और सक्रिय सहभागिता को प्रोत्साहित करती है ✔**

(4) The materials are aesthetically pleasing and visually attractive / सामग्री सौंदर्य की दृष्टि से मनभावन और देखने में आकर्षक है

Q.166 Which process is developed in children through interaction with the environment?
पर्यावरण के साथ अंतःक्रिया के माध्यम से बच्चों में कौन-सी प्रक्रिया विकसित होती है?

(1) Observation, recording, classification, communication / अवलोकन, अभिलेखन, वर्गीकरण, संप्रेषण ✔
(2) Sitting silently without exploring / खोजबीन किए बिना चुपचाप बैठे रहना
(3) Ignoring natural surroundings and objects / प्राकृतिक परिवेश और वस्तुओं की उपेक्षा करना
(4) Copying and memorizing from the board / बोर्ड से नकल करना और याद करना

Q.167 What is a demerit of the GMT method?
GMT विधि का एक दोष क्या है?

(1) It requires advanced technology. / इसके लिए उन्नत प्रौद्योगिकी की आवश्यकता होती है।
(2) It restricts speaking and listening skills. / यह बोलने और सुनने के कौशलों को सीमित करती है। ✔
(3) It is not suitable for large classes. / यह बड़ी कक्षाओं के लिए उपयुक्त नहीं है।
(4) It is expensive to implement. / इसे लागू करना महंगा है।

Q.168 The functional approach to Instructional Leadership explicitly includes defining which institutional component?
अनुदेशनात्मक नेतृत्व के प्रकार्यात्मक दृष्टिकोण में स्पष्ट रूप से किस संस्थागत घटक को परिभाषित करना शामिल है?

(1) Staffing reorganization / कर्मचारियों का पुनर्गठन
(2) Annual procurement plan / वार्षिक क्रय योजना
(3) External partnership goals / बाहरी साझेदारी के लक्ष्य
(4) Clear school mission / स्पष्ट विद्यालय मिशन ✔

Q.169 Quality textbooks facilitate effective learning by integrating what essential pedagogical feature?
गुणवत्तापूर्ण पाठ्यपुस्तकें किस आवश्यक शैक्षणिक विशेषता को एकीकृत करके प्रभावी अधिगम को सुगम बनाती हैं?

(1) Uniform presentation ignoring curriculum alignment / पाठ्यचर्या संरेखण की उपेक्षा करने वाली एकसमान प्रस्तुति
(2) Resource ideas with instructional activities rationale / अनुदेशनात्मक गतिविधियों के औचित्य सहित संसाधन संबंधी विचार ✔
(3) Static content without teaching strategy links / शिक्षण रणनीति से जुड़ाव के बिना स्थिर विषय-वस्तु
(4) Assessment tools excluding formative practice / रचनात्मक अभ्यास को छोड़कर आकलन उपकरण

Q.170 When assessing a student's writing, which of the following aspects is MOST important?
किसी विद्यार्थी के लेखन का आकलन करते समय, निम्नलिखित में से कौन-सा पहलू सबसे अधिक महत्वपूर्ण है?

(1) The type of pen used / प्रयुक्त पेन का प्रकार
(2) Grammar, creativity, and clarity of ideas / व्याकरण, सृजनात्मकता और विचारों की स्पष्टता ✔
(3) Only the length of the writing / केवल लेखन की लंबाई
(4) Copying from textbooks / पाठ्यपुस्तकों से नकल करना

Q.171 In the context of lesson planning, which step involves checking students' prior knowledge before introducing new content?
पाठ योजना के संदर्भ में, किस चरण में नई विषय-वस्तु प्रस्तुत करने से पहले विद्यार्थियों के पूर्व ज्ञान की जाँच करना शामिल है?

(1) Evaluation / मूल्यांकन
(2) Preparation / तैयारी ✔
(3) Presentation / प्रस्तुतीकरण
(4) Practice / अभ्यास

Q.172 The scope of social science is described as vast because:

सामाजिक विज्ञान के विस्तार-क्षेत्र को व्यापक बताया जाता है क्योंकि:

(1) It avoids analysis of facts and figures / यह तथ्यों और आँकड़ों के विश्लेषण से बचता है

(2) It focuses mainly on mathematical data / यह मुख्य रूप से गणितीय आँकड़ों पर केंद्रित होता है

(3) **It includes multiple disciplines and social situations / इसमें अनेक विषय-क्षेत्र और सामाजिक परिस्थितियाँ शामिल हैं ✔**

(4) It deals only with ancient civilizations / यह केवल प्राचीन सभ्यताओं से संबंधित है

Q.173 Which statement best captures the relationship between equality and justice?

कौन-सा कथन समानता और न्याय के बीच संबंध को सबसे अच्छी तरह व्यक्त करता है?

(1) Equality replaces the need for justice in society / समानता समाज में न्याय की आवश्यकता का स्थान ले लेती है

(2) **Justice gives meaning to equality by ensuring fairness in practice / न्याय व्यवहार में निष्पक्षता सुनिश्चित करके समानता को अर्थ प्रदान करता है ✔**

(3) Justice requires treating everyone exactly the same / न्याय के लिए सभी के साथ बिल्कुल एक जैसा व्यवहार करना आवश्यक है

(4) Equality and justice are unrelated concepts in democratic systems / लोकतांत्रिक व्यवस्थाओं में समानता और न्याय असंबंधित अवधारणाएँ हैं

Q.174 Which of the following is a major theme in the EVS curriculum at the primary level?

निम्नलिखित में से कौन-सा प्राथमिक स्तर पर EVS पाठ्यचर्या का एक प्रमुख विषय (थीम) है?

(1) Basics of quantum physics concepts / क्वांटम भौतिकी की मूल अवधारणाएँ

(2) Ideas from advanced calculus study / उन्नत कलन अध्ययन के विचार

(3) Rules guiding international trade / अंतरराष्ट्रीय व्यापार को निर्देशित करने वाले नियम

(4) **Topics on families, nature, and health / परिवार, प्रकृति और स्वास्थ्य से संबंधित विषय ✔**

Q.175 Which primary skill does the Grammar Translation Method focus on developing?

व्याकरण अनुवाद विधि किस प्राथमिक कौशल को विकसित करने पर केंद्रित है?

(1) Listening practice / श्रवण अभ्यास

(2) Interactive speaking / अंतःक्रियात्मक बोलचाल

(3) **Reading comprehension / पठन बोध ✔**

(4) Oral communication / मौखिक संप्रेषण

Q.176 Which languages were primarily taught using the Grammar Translation method during its early years?

अपने प्रारंभिक वर्षों के दौरान व्याकरण अनुवाद विधि का उपयोग करके मुख्य रूप से कौन-सी भाषाएँ पढ़ाई जाती थीं?

(1) French and Spanish / फ्रेंच और स्पेनिश

(2) Chinese and Japanese / चीनी और जापानी

(3) **Greek and Latin / ग्रीक और लैटिन ✔**

(4) English and German / अंग्रेजी और जर्मन

Q.177 A central problem of globalization in education is that it can:

शिक्षा में वैश्वीकरण की एक केंद्रीय समस्या यह है कि यह:

(1) Reduce the need for technology skills in learning / अधिगम में प्रौद्योगिकी कौशलों की आवश्यकता को कम कर सकता है

(2) Give equal learning opportunities to everyone / सभी को समान अधिगम अवसर प्रदान कर सकता है

(3) **Make cultures look similar and increase digital inequality / संस्कृतियों को एक जैसा बना सकता है और डिजिटल असमानता बढ़ा सकता है ✔**

(4) Strengthen local culture without any outside effect / बिना किसी बाहरी प्रभाव के स्थानीय संस्कृति को सुदृढ़ कर सकता है

Q.178 A school leader aiming to drive effective change in teaching and learning should primarily focus on which approach?

शिक्षण और अधिगम में प्रभावी परिवर्तन लाने का लक्ष्य रखने वाले विद्यालय प्रमुख को मुख्य रूप से किस दृष्टिकोण पर ध्यान केंद्रित करना चाहिए?

(1) Implementing changes without staff consultation / कर्मचारियों से परामर्श किए बिना परिवर्तन लागू करना

(2) Relying only on external experts for advice / सलाह के लिए केवल बाहरी विशेषज्ञों पर निर्भर रहना

(3) Mandating uniform teaching methods across all subjects / सभी विषयों में एकसमान शिक्षण विधियों को अनिवार्य करना

(4) Shared instructional decision-making with teachers / शिक्षकों के साथ साझा अनुदेशनात्मक निर्णय-निर्माण ✓

Q.179 A teacher is designing homework based on textbook exercises for an optional pedagogic course. To promote transfer of learning, what should she ensure?

एक शिक्षिका एक वैकल्पिक शैक्षणिक पाठ्यक्रम के लिए पाठ्यपुस्तक के अभ्यासों पर आधारित गृहकार्य तैयार कर रही है। अधिगम के अंतरण को बढ़ावा देने के लिए, उसे क्या सुनिश्चित करना चाहिए?

(1) She links homework tasks to real-life situations, such as family journals. / वह गृहकार्य को वास्तविक जीवन की परिस्थितियों, जैसे पारिवारिक जर्नल, से जोड़ती है। ✓

(2) She repeats classroom exercises as homework without variation. / वह कक्षा के अभ्यासों को बिना किसी बदलाव के गृहकार्य के रूप में दोहराती है।

(3) She limits homework to textbook reading only. / वह गृहकार्य को केवल पाठ्यपुस्तक पढ़ने तक सीमित रखती है।

(4) She assigns only textbook questions without context. / वह बिना संदर्भ के केवल पाठ्यपुस्तक के प्रश्न देती है।

Q.180 A teacher designs tasks that develop thinking, emotional understanding, and hand–eye coordination. This demonstrates:

एक शिक्षक ऐसे कार्य तैयार करता है जो चिंतन, भावनात्मक समझ और हाथ–आँख समन्वय का विकास करते हैं। यह किसे प्रदर्शित करता है?

(1) Organizational skills training / संगठनात्मक कौशल प्रशिक्षण

(2) Bloom's three learning domains / ब्लूम के तीन अधिगम क्षेत्र ✓

(3) Aesthetic appreciation activities / सौंदर्य-बोध संबंधी गतिविधियाँ

(4) A focus on memorization / याद करने पर ध्यान केंद्रित करना

Q.181 A student receives individualised pull-out sessions, uses manipulatives like an abacus, and is provided with extra time for tasks. Which combination of needs is most likely being addressed?

एक विद्यार्थी को वैयक्तिक पुल-आउट सत्र दिए जाते हैं, वह अबेकस जैसी हस्तकौशल सामग्री (मैनिपुलेटिव्स) का उपयोग करता है, और उसे कार्यों के लिए अतिरिक्त समय प्रदान किया जाता है। किन आवश्यकताओं के संयोजन को संबोधित किए जाने की सबसे अधिक संभावना है?

(1) Dysgraphia and peer support / डिस्ग्राफिया और सहपाठी सहायता

(2) Dyslexia and large print texts / डिस्लेक्सिया और बड़े अक्षरों वाले पाठ

(3) Auditory processing and speech therapy / श्रवण प्रसंस्करण और वाक् चिकित्सा

(4) Dyscalculia and classroom adaptation / डिस्कैलकुलिया और कक्षा अनुकूलन ✓

Q.182 A school aims to promote a more gender-inclusive learning environment.
Which initiative would be most effective?
एक विद्यालय अधिक लैंगिक-समावेशी अधिगम वातावरण को बढ़ावा देना चाहता है।
कौन-सी पहल सबसे अधिक प्रभावी होगी?

(1) Addressing inclusion only during special awareness events / केवल विशेष जागरूकता कार्यक्रमों के दौरान समावेशन पर ध्यान देना

(2) Maintaining traditional gender roles in school activities / विद्यालयी गतिविधियों में पारंपरिक लैंगिक भूमिकाओं को बनाए रखना

(3) Highlighting achievement examples from one gender group / एक लिंग समूह की उपलब्धियों के उदाहरणों को प्रमुखता देना

(4) Reviewing learning materials to eliminate gender stereotypes / लैंगिक रूढ़ियों को समाप्त करने के लिए अधिगम सामग्री की समीक्षा करना ✔

Q.183 Children from marginalized families face classroom neglect despite strong performance primarily due to which combined factors?
हाशिए पर स्थित परिवारों के बच्चों को अच्छे प्रदर्शन के बावजूद कक्षा में उपेक्षा का सामना मुख्य रूप से किन संयुक्त कारकों के कारण करना पड़ता है?

(1) Teacher prejudice and peer insensitivity to diversity contexts / शिक्षक का पूर्वाग्रह और विविधता संदर्भों के प्रति सहपाठियों की असंवेदनशीलता ✔

(2) Advanced digital resources and integration of technology excluding rural participants only / उन्नत डिजिटल संसाधन और केवल ग्रामीण प्रतिभागियों को छोड़कर प्रौद्योगिकी का एकीकरण

(3) The provisions of RTE Act systematically denies access to education / RTE अधिनियम के प्रावधान व्यवस्थित रूप से शिक्षा तक पहुँच से वंचित करते हैं

(4) Uniform curriculum and syllabus design ignoring socioeconomic gradients / सामाजिक-आर्थिक स्तरों की उपेक्षा करने वाली एकसमान पाठ्यचर्या और पाठ्यक्रम संरचना

Q.184 Charts, maps and diagrams belong to which category of teaching aids?
चार्ट, मानचित्र और आरेख शिक्षण सहायक सामग्री की किस श्रेणी से संबंधित हैं?

(1) Audio-visual aids / दृश्य-श्रव्य सामग्री

(2) Visual aids / दृश्य सामग्री ✔

(3) Audio aids / श्रव्य सामग्री

(4) Activity aids / गतिविधि सामग्री

Q.185 A teacher asks students to explain the difference between formative and summative assessment. This question mainly evaluates which cognitive skill level according to Bloom's taxonomy?
एक शिक्षक विद्यार्थियों से रचनात्मक और योगात्मक आकलन के बीच अंतर स्पष्ट करने के लिए कहता है। ब्लूम के वर्गीकरण के अनुसार यह प्रश्न मुख्य रूप से किस संज्ञानात्मक कौशल स्तर का मूल्यांकन करता है?

(1) Understanding / समझना ✔

(2) Creating / सृजन करना

(3) Remembering / स्मरण करना

(4) Applying / अनुप्रयोग करना

Q.186 How can a teacher make classroom materials more inclusive for students from different backgrounds?
एक शिक्षक विभिन्न पृष्ठभूमियों के विद्यार्थियों के लिए कक्षा सामग्री को अधिक समावेशी कैसे बना सकता है?

(1) Using only prescribed English textbooks / केवल निर्धारित अंग्रेजी पाठ्यपुस्तकों का उपयोग करके
(2) Choosing content from a state curriculum / राज्य पाठ्यचर्या से विषय-वस्तु का चयन करके
(3) Incorporating examples from various cultures / विभिन्न संस्कृतियों के उदाहरणों को शामिल करके ✓
(4) Avoiding the use of local examples in classroom / कक्षा में स्थानीय उदाहरणों के उपयोग से बचकर

Q.187 How can textbooks influence gender socialisation?
पाठ्यपुस्तकें लैंगिक समाजीकरण को किस प्रकार प्रभावित कर सकती हैं?

(1) By portraying traditional or diverse gender roles / पारंपरिक या विविध लैंगिक भूमिकाओं का चित्रण करके ✓
(2) By mandating extracurricular participation for students / विद्यार्थियों के लिए पाठ्येतर सहभागिता को अनिवार्य करके
(3) By controlling teacher behaviours in classrooms / कक्षाओं में शिक्षकों के व्यवहार को नियंत्रित करके
(4) By assigning grades based on gender differences / लैंगिक अंतरों के आधार पर ग्रेड देकर

Q.188 When teachers discourage boys from expressing emotions while permitting girls to do so, this pattern of interaction reinforces:
जब शिक्षक लड़कों को भावनाएँ व्यक्त करने से हतोत्साहित करते हैं जबकि लड़कियों को ऐसा करने की अनुमति देते हैं, तो अंतःक्रिया का यह प्रतिरूप किसे सुदृढ़ करता है?

(1) Independent academic functioning / स्वतंत्र शैक्षणिक कार्यप्रणाली
(2) Gender-neutral classroom behaviour / लिंग-तटस्थ कक्षा व्यवहार
(3) Traditional gender norms / पारंपरिक लैंगिक मानदंड ✓
(4) Positive emotional growth / सकारात्मक भावनात्मक विकास

Q.189 Mathematics is most precisely defined as the science of which of the following?
गणित को सबसे सटीक रूप से निम्नलिखित में से किसके विज्ञान के रूप में परिभाषित किया जाता है?

(1) History and culture / इतिहास और संस्कृति
(2) Art and music / कला और संगीत
(3) Quantity, measurement, and spatial relations / मात्रा, मापन और स्थानिक संबंध ✓
(4) Language and literature / भाषा और साहित्य

Q.190 Excluding rotations and reflections, how many distinct magic squares exist for order 3 using 1 through 9?
घूर्णनों और परावर्तनों को छोड़कर, 1 से 9 तक की संख्याओं का उपयोग करके कोटि 3 के कितने भिन्न जादुई वर्ग संभव हैं?

(1) 275305224 total variants / कुल 275305224 रूप
(2) Infinite solutions via scaling factors / स्केलिंग गुणकों के माध्यम से अनंत हल
(3) 880 fundamental arrangements / 880 मूलभूत व्यवस्थाएँ
(4) Exactly one unique configuration / ठीक एक अद्वितीय विन्यास ✓

Q.191 Science education is best described as a process of:

विज्ञान शिक्षा को सबसे अच्छी तरह किस प्रक्रिया के रूप में वर्णित किया जाता है?

(1) Passive reception of information provided by teachers and textbooks / शिक्षकों और पाठ्यपुस्तकों द्वारा प्रदान की गई जानकारी का निष्क्रिय ग्रहण

(2) Accumulation of factual knowledge without conceptual understanding / संकल्पनात्मक समझ के बिना तथ्यात्मक ज्ञान का संचय

(3) Inquiry-based learning that links theory with real-life applications / जाँच-आधारित अधिगम जो सिद्धांत को वास्तविक जीवन के अनुप्रयोगों से जोड़ता है ✔

(4) Training students exclusively for competitive scientific examinations / विद्यार्थियों को केवल प्रतियोगी वैज्ञानिक परीक्षाओं के लिए प्रशिक्षित करना

Q.192 Which feature of the secondary science kit most directly supports the performance of laboratory experiments prescribed by CBSE for Classes IX and X?

माध्यमिक विज्ञान किट की कौन-सी विशेषता कक्षा IX और X के लिए CBSE द्वारा निर्धारित प्रयोगशाला प्रयोगों को करने में सबसे प्रत्यक्ष रूप से सहायक है?

(1) Provision of teacher training modules within the kit / किट के भीतर शिक्षक प्रशिक्षण मॉड्यूल का प्रावधान

(2) Inclusion of scientific apparatus matching CBSE curriculum / CBSE पाठ्यचर्या के अनुरूप वैज्ञानिक उपकरणों का समावेश ✔

(3) Addition of historical background of scientific concepts / वैज्ञानिक अवधारणाओं की ऐतिहासिक पृष्ठभूमि को जोड़ना

(4) Distribution of theoretical workbooks for students / विद्यार्थियों के लिए सैद्धांतिक कार्यपुस्तिकाओं का वितरण

Q.193 Which of the following is an important step schools can take to promote gender equality?

निम्नलिखित में से कौन-सा एक महत्वपूर्ण कदम है जो विद्यालय लैंगिक समानता को बढ़ावा देने के लिए उठा सकते हैं?

(1) Separating boys and girls in all activities / सभी गतिविधियों में लड़कों और लड़कियों को अलग करना

(2) Ensuring equal opportunities for all genders / सभी लिंगों के लिए समान अवसर सुनिश्चित करना ✔

(3) Focusing activities only on girls / गतिविधियों को केवल लड़कियों पर केंद्रित करना

(4) Ignoring gender issues in school programs / विद्यालयी कार्यक्रमों में लैंगिक मुद्दों की उपेक्षा करना

Q.194 Which of the following is an example of a visual teaching aid in language teaching?

निम्नलिखित में से कौन-सा भाषा शिक्षण में दृश्य शिक्षण सहायक सामग्री का एक उदाहरण है?

(1) Flashcards showing words and pictures / शब्द और चित्र दर्शाने वाले फ्लैशकार्ड ✔

(2) Teacher giving oral instructions to the class / शिक्षक द्वारा कक्षा को मौखिक निर्देश देना

(3) Teacher conducting group discussion in class / शिक्षक द्वारा कक्षा में समूह चर्चा कराना

(4) Students reading silently from textbooks / विद्यार्थियों द्वारा पाठ्यपुस्तकों से मौन पठन करना

Q.195 Why is a science kit considered important in school science teaching?

विद्यालयी विज्ञान शिक्षण में विज्ञान किट को महत्वपूर्ण क्यों माना जाता है?

(1) It reduces the time spent on classroom teaching activities / यह कक्षा शिक्षण गतिविधियों में लगने वाले समय को कम करती है

(2) It helps students perform experiments and learn science concepts / यह विद्यार्थियों को प्रयोग करने और विज्ञान की अवधारणाएँ सीखने में सहायता करती है ✔

(3) It replaces textbooks as the main source of science knowledge / यह विज्ञान ज्ञान के मुख्य स्रोत के रूप में पाठ्यपुस्तकों का स्थान ले लेती है

(4) It is mainly used for decoration in school science laboratories / इसका उपयोग मुख्य रूप से विद्यालय की विज्ञान प्रयोगशालाओं में सजावट के लिए किया जाता है

Q.196 A school Eco-Club organizes a trip to a nearby water treatment facility. Which primary non-cognitive goal is best achieved by this application activity?

एक विद्यालय का इको-क्लब पास के एक जल उपचार संयंत्र की यात्रा आयोजित करता है। इस अनुप्रयोग गतिविधि द्वारा कौन-सा प्राथमिक गैर-संज्ञानात्मक लक्ष्य सबसे अच्छी तरह प्राप्त होता है?

(1) Appreciating society linkages / समाज से जुड़ावों की सराहना करना ✔

(2) Promoting cooperative skills / सहयोगात्मक कौशलों को बढ़ावा देना

(3) Verifying conceptual theories / संकल्पनात्मक सिद्धांतों का सत्यापन करना

(4) Developing precise inquiry / सटीक जाँच-पड़ताल विकसित करना

Q.197 Which example best illustrates the use of recreational mathematics to promote the joy of learning?

कौन-सा उदाहरण सीखने के आनंद को बढ़ावा देने के लिए मनोरंजक गणित के उपयोग को सबसे अच्छी तरह दर्शाता है?

(1) Focusing only on textbook exercises every day / प्रतिदिन केवल पाठ्यपुस्तक के अभ्यासों पर ध्यान केंद्रित करना

(2) Limiting lessons to lecture-based explanations / पाठों को व्याख्यान-आधारित व्याख्याओं तक सीमित रखना

(3) Solving puzzles and playing math games in class / कक्षा में पहेलियाँ हल करना और गणित के खेल खेलना ✔

(4) Assigning repetitive drills with no variation / बिना किसी बदलाव के दोहराव वाले अभ्यास देना

Q.198 Why is recreational mathematics important in learning mathematics?

गणित सीखने में मनोरंजक गणित क्यों महत्वपूर्ण है?

(1) It helps students avoid common mistakes. / यह विद्यार्थियों को सामान्य गलतियों से बचने में सहायता करता है।

(2) It develops problem-solving skills in a fun way. / यह मनोरंजक तरीके से समस्या-समाधान कौशल विकसित करता है। ✔

(3) It focuses only on memorizing formulas. / यह केवल सूत्रों को याद करने पर केंद्रित होता है।

(4) It teaches only routine calculations. / यह केवल नियमित गणनाएँ सिखाता है।

Q.199 What is a key benefit of addressing diversity and inequality in Indian classrooms?

भारतीय कक्षाओं में विविधता और असमानता को संबोधित करने का एक प्रमुख लाभ क्या है?

(1) It encourages competition between students / यह विद्यार्थियों के बीच प्रतिस्पर्धा को प्रोत्साहित करता है

(2) It limits cultural exchange / यह सांस्कृतिक आदान-प्रदान को सीमित करता है

(3) It maintains traditional classroom structures / यह पारंपरिक कक्षा संरचनाओं को बनाए रखता है

(4) It promotes equal participation among all students " / यह सभी विद्यार्थियों के बीच समान सहभागिता को बढ़ावा देता है " ✔

Answer Key / उत्तर कुंजी

1 2	**2** 3	**3** 2	**4** 1	**5** 4	**6** 2	**7** 4	**8** 3	**9** 1	**10** 2	**11** 4	**12** 1	**13** 2	**14** 1	**15** 4
16 3	**17** 2	**18** 2	**19** 3	**20** 2	**21** 2	**22** 4	**23** 1	**24** 1	**25** 4	**26** 3	**27** 4	**28** 1	**29** 2	**30** 1
31 1	**32** 4	**33** 1	**34** 1	**35** 4	**36** 1	**37** 4	**38** 2	**39** 1	**40** 1	**41** 2	**42** 2	**43** 1	**44** 2	**45** 3
46 4	**47** 1	**48** 4	**49** 2	**50** 3	**51** 1	**52** 2	**53** 3	**54** 1	**55** 3	**56** 3	**57** 2	**58** 4	**59** 4	**60** 4
61 1	**62** 4	**63** 3	**64** 3	**65** 1	**66** 2	**67** 4	**68** 1	**69** 2	**70** 1	**71** 3	**72** 1	**73** 2	**74** 4	**75** 4
76 3	**77** 2	**78** 3	**79** 1	**80** 3	**81** 4	**82** 4	**83** 3	**84** 3	**85** 2	**86** 2	**87** 2	**88** 2	**89** 2	**90** 2

91 2	**92** 4	**93** 3	**94** 3	**95** 2	**96** 4	**97** 2	**98** 3	**99** 3	**100** 3	**101** 4	**102** 3	**103** 2	**104** 3	**105** 2
106 2	**107** 1	**108** 1	**109** 2	**110** 3	**111** 4	**112** 1	**113** 1	**114** 1	**115** 3	**116** 4	**117** 4	**118** 2	**119** 1	**120** 4
121 4	**122** 3	**123** 2	**124** 4	**125** 2	**126** 2	**127** 3	**128** 3	**129** 3	**130** 1	**131** 1	**132** 3	**133** 1	**134** 3	**135** 2
136 1	**137** 3	**138** 2	**139** 1	**140** 2	**141** 4	**142** 2	**143** 3	**144** 2	**145** 2	**146** 3	**147** 3	**148** 3	**149** 1	**150** 3
151 2	**152** 1	**153** 3	**154** 4	**155** 2	**156** 2	**157** 2	**158** 2	**159** 2	**160** 2	**161** 3	**162** 3	**163** 3	**164** 2	**165** 3
166 1	**167** 2	**168** 4	**169** 2	**170** 2	**171** 2	**172** 3	**173** 2	**174** 4	**175** 3	**176** 3	**177** 3	**178** 4	**179** 1	**180** 2
181 4	**182** 4	**183** 1	**184** 2	**185** 1	**186** 3	**187** 1	**188** 3	**189** 3	**190** 4	**191** 3	**192** 2	**193** 2	**194** 1	**195** 2
196 1	**197** 3	**198** 2	**199** 4											

Quick Sarkari

GOVT. OF NCT OF DELHI
Delhi Subordinate Services Selection Board
FC-18, Institutional Area, Karkardooma, Delhi – 110092.
www.dsssb.delhigovt.nic.in

Participant ID	[redacted]
Participant Name	[redacted]
Test Center Name	[redacted]
Test Date	19/02/2026
Test Time	5:00 PM - 7:00 PM
Subject	Assistant Teacher Primary

Section : **General Intelligence and Reasoning Ability**

Q.1 **Based on the alphabetical order, three of the following four are alike in a certain way and thus form a group. Which is the one that does not belong to that group? (Note: The odd man out is not based on the number of consonants/vowels or their position in the letter cluster)** 10693

Ans
✗ 1. YCB
✓ 2. FKI
✗ 3. HLK
✗ 4. CGF

Question ID : **441009764845**
Option 1 ID : **4410093013375**
Option 2 ID : **4410093013373**
Option 3 ID : **4410093013376**
Option 4 ID : **4410093013374**

QuickSarkari.com | WhatsApp Channel | Telegram: t.me/quick_sarkari

Q.2 If the water source is placed along M-N, as shown in the figure, which of the given options will be the water reflection of the given figure?

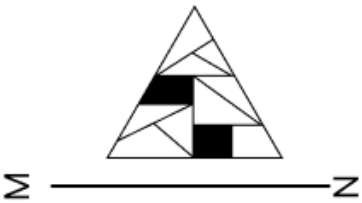

Ans

✗ 1.



✗ 2.



✓ 3.



✗ 4.



Question ID : **4410098649 36**
Option 1 ID : **4410093412844**
Option 2 ID : **4410093412845**
Option 3 ID : **4410093412846**
Option 4 ID : **4410093412847**

Q.3 Seven people, D, A, N, U, B, E and S are sitting in a row, facing north. Only two people sit between N and S. Only B sits to the right of U. Only one person sits between S and U. D sits at some place to the right of E but at some place to the left of A. How many people sit between A and E?

Ans

✗ 1. One

✓ 2. Two

✗ 3. Three

✗ 4. Four

Question ID : **4410091618816**
Option 1 ID : **4410096394136**
Option 2 ID : **4410096394137**
Option 3 ID : **4410096394138**
Option 4 ID : **4410096394139**

QuickSarkari.com | WhatsApp Channel | Telegram: t.me/quick_sarkari

Q.4 The position(s) of how many letters will remain unchanged if each letter in the word HUMANITY is arranged in the English alphabetical order?9815

Ans
✔ 1. Two
✘ 2. One
✘ 3. Three
✘ 4. Zero

Question ID : **441009763970**
Option 1 ID : **4410093009875**
Option 2 ID : **4410093009874**
Option 3 ID : **4410093009876**
Option 4 ID : **4410093009873**

Q.5 Each of A, B, C, D, I, J and K has an exam on a different day of a week starting from Monday and ending on Sunday of the same week. Only three people have exams between D and J. Only three people have exams between B and I. K has exam on some day before J and on some day after A. Only C has exam before I. How many people have exams after D?

Ans
✘ 1. Two
✘ 2. Three
✘ 3. One
✔ 4. Four

Question ID : **4410091614371**
Option 1 ID : **4410096376302**
Option 2 ID : **4410096376303**
Option 3 ID : **4410096376301**
Option 4 ID : **4410096376304**

Q.6 If 'A' stands for '÷', 'B' stands for 'x', 'C' stands for '+' and 'D' stands for '-', what will come in place of question mark '?' in the following equation?
13 B 4 D 6 A 2 C 9 = ?

Ans
✘ 1. 56
✔ 2. 58
✘ 3. 52
✘ 4. 60

Question ID : **4410091606230**
Option 1 ID : **4410096343945**
Option 2 ID : **4410096343946**
Option 3 ID : **4410096343944**
Option 4 ID : **4410096343947**

QuickSarkari.com | WhatsApp Channel | Telegram: t.me/quick_sarkari

Q.7 In a row of 50 students facing north, Hari is 10th from the right end. If Kapil is 4th to the left of Hari, what is Kapil's position from the left end of the line?

Ans
1. 38th
2. 36th
3. 35th
4. 37th

Question ID : **4410091619660**
Option 1 ID : **4410096397499**
Option 2 ID : **4410096397497**
Option 3 ID : **4410096397496**
Option 4 ID : **4410096397498**

Q.8 Each vowel in the word FEASIBLE is changed to the letter immediately following it in the English alphabetical order and each consonant is changed to the second letter preceding it in the English alphabetical order. How many letters will appear exactly twice in the new group of letters thus formed?

Ans
1. Four
2. Three
3. Two
4. One

Question ID : **441009216476**
Option 1 ID : **441009849946**
Option 2 ID : **441009849945**
Option 3 ID : **441009849944**
Option 4 ID : **441009849943**

Q.9 Which of the following letter-number clusters will replace the question mark (?) in the given series to make it logically complete?

FZK51, ZTE70, TNY89, NHS108, ?

Ans
1. HBM127
2. HIM127
3. HBN127
4. JBM127

Question ID : **4410091519089**
Option 1 ID : **4410095999618**
Option 2 ID : **4410095999619**
Option 3 ID : **4410095999621**
Option 4 ID : **4410095999620**

QuickSarkari.com | WhatsApp Channel | Telegram: t.me/quick_sarkari

Q.10 **Below are given two sets of numbers. In each set of numbers, a certain mathematical operation on the first number results in the second number. Similarly, certain mathematical operation on the second number results in the third number and so on. Which of the given options follows the same set of operations as in the question?**
(NOTE – A two/three-digit number cannot be broken into individual digits for operations e.g. if 37 is followed by 10, the operation cannot be 3+7 as a two-digit number cannot be broken into individual digits)
13 - 20 - 15 - 25
48 - 55 - 50 - 602397

Ans
✗ 1. 42 - 50 - 45 - 56

✓ 2. 18 - 25 - 20 - 30

✗ 3. 25 - 36 - 31 - 41

✗ 4. 14 - 24 - 17 - 27

Question ID : **4410095287 51**
Option 1 ID : **4410092070410**
Option 2 ID : **4410092070408**
Option 3 ID : **4410092070409**
Option 4 ID : **4410092070411**

Quick Sarkari

Q.11 Select the correct mirror image of the given figure when the mirror is placed at MN as shown below.



Ans

✗ 1. 

✗ 2. 

✗ 3. 

✓ 4. 

Question ID : **4410091614496**
Option 1 ID : **4410096376802**
Option 2 ID : **4410096376801**
Option 3 ID : **4410096376804**
Option 4 ID : **4410096376803**

Q.12 Refer to the following number and symbol series and answer the question that follows. Counting to be done from left to right only. All numbers are single-digit numbers only.
(Left) 2 8 3 @ & / > 9 8 \ $ 8 > 5 * ^ 9 4 2 5 ^ (Right)

How many such symbols are there, each of which is immediately preceded by a number and also immediately followed by a number?

Ans

✓ 1. One

✗ 2. None

✗ 3. Three

✗ 4. Two

Question ID : **441009788250**
Option 1 ID : **4410093107000**
Option 2 ID : **4410093106999**
Option 3 ID : **4410093107002**
Option 4 ID : **4410093107001**

QuickSarkari.com | WhatsApp Channel | Telegram: t.me/quick_sarkari

Q.13 F is the sister of I. I is the brother of G. W is the father of Z. Z is the son of G. How is Z related to F?

Ans

✗ 1. Father

✓ 2. Sister's son

✗ 3. Sister's husband

✗ 4. Son

Question ID : **4410091614472**
Option 1 ID : **4410096376708**
Option 2 ID : **4410096376705**
Option 3 ID : **4410096376706**
Option 4 ID : **4410096376707**

Q.14 Refer to the following series and answer the question (all numbers are single digit numbers only.Counting has to be done from left to right)
(Left) 9 1 7 8 3 1 5 7 9 6 2 9 3 6 9 1 5 7 1 5 7 (Right)

How many such even digits are there each of which is immediately preceded by an even digit and also immediately followed by an odd digit?

Ans

✓ 1. One

✗ 2. Four

✗ 3. Two

✗ 4. Three

Question ID : **4410091614568**
Option 1 ID : **4410096377085**
Option 2 ID : **4410096377088**
Option 3 ID : **4410096377086**
Option 4 ID : **4410096377087**

Q.15 If 'A' stands for '÷', 'B' stands for '×', 'C' stands for '+' and 'D' stands for '-', what will be come in place of question mark '?' in the following equation?
84 A 4 B 8 C 28 D 14=?3674

Ans

✗ 1. 184

✗ 2. 186

✗ 3. 180

✓ 4. 182

Question ID : **441009554139**
Option 1 ID : **4410092171872**
Option 2 ID : **4410092171873**
Option 3 ID : **4410092171870**
Option 4 ID : **4410092171871**

QuickSarkari.com | WhatsApp Channel | Telegram: t.me/quick_sarkari

Q.16 GECB is related to ECAZ in a certain way based on the English alphabetical order. In the same way, XVTS is related to VTRQ. To which of the following is WUSR related, following the same logic?5093

Ans
✗ 1. USPP
✗ 2. URPP
✓ 3. USQP
✗ 4. UTPX

Question ID : **441009779056**
Option 1 ID : **4410093070230**
Option 2 ID : **4410093070229**
Option 3 ID : **4410093070227**
Option 4 ID : **4410093070228**

Q.17 Each of E, F, G, H, Q, R and S has an exam on a different day of a week starting from Monday and ending on Sunday of the same week. Only two people have exam before R. Only one person has exam after Q. Only three people have exam between R and G. Only one person has exam between F and S. H has exam immediately before F. How many people have exam between E and F?

Ans
✗ 1. One
✓ 2. Two
✗ 3. Four
✗ 4. Three

Question ID : **4410091618864**
Option 1 ID : **4410096394328**
Option 2 ID : **4410096394329**
Option 3 ID : **4410096394331**
Option 4 ID : **4410096394330**

Q.18 What should come in place of '?' in the given series?

88 92 76 112 48 ?

Ans
✗ 1. 122
✓ 2. 148
✗ 3. 134
✗ 4. 156

Question ID : **4410091528171**
Option 1 ID : **4410096035877**
Option 2 ID : **4410096035879**
Option 3 ID : **4410096035878**
Option 4 ID : **4410096035880**

QuickSarkari.com | WhatsApp Channel | Telegram: t.me/quick_sarkari

Q.19 In a certain code language, 'HARM' is coded as '7859' and 'HEAR' is coded as '8257'. What is the code for 'E' in the given code language?

Ans
✗ 1. 5
✗ 2. 8
✓ 3. 2
✗ 4. 9

Question ID : **4410091518962**
Option 1 ID : **4410095999104**
Option 2 ID : **4410095999105**
Option 3 ID : **4410095999102**
Option 4 ID : **4410095999103**

Q.20 Based on the English alphabetical order, three of the following four letter-cluster pairs are alike in a certain way and thus form a group. Which is the one that does not belong to that group? (Note: The odd one out is not based on the number of consonants/vowels or their position in the letter cluster.) 4182

Ans
✗ 1. OK - IE
✓ 2. PK - JF
✗ 3. RN - LH
✗ 4. KG - EA

Question ID : **441009790296**
Option 1 ID : **4410093115183**
Option 2 ID : **4410093115186**
Option 3 ID : **4410093115185**
Option 4 ID : **4410093115184**

Section : **General Awareness**

Q.1 Which Indian sprinter became the first to clock below 10.2 seconds in the men's 100 m in early July 2025?

Ans
✗ 1. Gurindervir Singh
✓ 2. Animesh Kujur
✗ 3. Gulveer Singh
✗ 4. Amlan Borgohain

Question ID : **441009206794**
Option 1 ID : **441009813136**
Option 2 ID : **441009813137**
Option 3 ID : **441009813138**
Option 4 ID : **441009813139**

QuickSarkari.com | WhatsApp Channel | Telegram: t.me/quick_sarkari

Q.2 When did the revolt of 1857 start?

Ans
✗ 1. 12 April
✗ 2. 15 June
✗ 3. 15 August
✓ 4. 10 May

Question ID : **441009311157**
Option 1 ID : **4410091211120**
Option 2 ID : **4410091211119**
Option 3 ID : **4410091211122**
Option 4 ID : **4410091211121**

Q.3 Who among the following was the founder of the Imperial Chola Dynasty?

Ans
✓ 1. Vijayalaya
✗ 2. Dantidurga
✗ 3. Gopala
✗ 4. Dharmapala

Question ID : **44100914897**
Option 1 ID : **44100959437**
Option 2 ID : **44100959438**
Option 3 ID : **44100959439**
Option 4 ID : **44100959440**

Q.4 Which national organization has set up a committee in February 2025 to develop a strategic plan for upgrading AIIMS, New Delhi, into a globally recognized center for medical research and healthcare excellence?

Ans
✓ 1. NITI Aayog
✗ 2. Reserve Bank of India
✗ 3. National Development Council
✗ 4. Finance Commission

Question ID : **441009198195**
Option 1 ID : **441009780433**
Option 2 ID : **441009780434**
Option 3 ID : **441009780435**
Option 4 ID : **441009780436**

Q.5 What causes structural unemployment in the context of India?

Ans
✗ 1. Seasonal demand fluctuations
✗ 2. Temporary layoffs during economic slowdowns
✗ 3. Slowdown in the agriculture
✓ 4. Insufficient qualifications to meet job demands due to changes in the economy

Question ID : **441009226975**
Option 1 ID : **441009888712**
Option 2 ID : **441009888713**
Option 3 ID : **441009888714**
Option 4 ID : **441009888711**

QuickSarkari.com | WhatsApp Channel | Telegram: t.me/quick_sarkari

Q.6 **Which factor from the following causes the reversal of winds over the Indian subcontinent, leading to the monsoon?**

Ans

✗ 1. Movement of cold ocean currents near the Indian coast

✗ 2. Formation of the El Niño effect

✓ 3. Shifting of the Inter-Tropical Convergence Zone (ITCZ)

✗ 4. Western Disturbances from the Mediterranean region

Question ID : **441009341407**
Option 1 ID : **4410091331620**
Option 2 ID : **4410091331621**
Option 3 ID : **4410091331619**
Option 4 ID : **4410091331622**

Q.7 **In November 2024, which Indian company announced to launch MOI-TD, the nation's first space-based AI laboratory, on board ISRO's PSLV-C60 mission?**

Ans

✗ 1. Dhruva Space

✗ 2. Space Zone

✗ 3. Skyroot Aerospace

✓ 4. TakeMe2 Space

Question ID : **441009164329**
Option 1 ID : **441009650936**
Option 2 ID : **441009650937**
Option 3 ID : **441009650934**
Option 4 ID : **441009650935**

Q.8 **Which Sikh festival commemorates the birth anniversary of the first spiritual teacher of the faith?**

Ans

✓ 1. Guru Nanak Jayanti

✗ 2. Hola Mohalla

✗ 3. Baisakhi

✗ 4. Lohri

Question ID : **441009749590**
Option 1 ID : **4410092952190**
Option 2 ID : **4410092952191**
Option 3 ID : **4410092952192**
Option 4 ID : **4410092952193**

Q.9 **Why is thermal power not considered a renewable energy source?**

Ans

✗ 1. It can only be produced in coastal areas

✓ 2. It depends on finite coal reserves

✗ 3. It requires nuclear fuel

✗ 4. It is expensive to produce

Question ID : **441009209791**
Option 1 ID : **441009824413**
Option 2 ID : **441009824410**
Option 3 ID : **441009824412**
Option 4 ID : **441009824411**

QuickSarkari.com | WhatsApp Channel | Telegram: t.me/quick_sarkari

Q.10 What is the main role of NABARD?

Ans
✔ 1. Regulate credit facilities for the development of agriculture
✘ 2. Provide insurance to rural workers
✘ 3. Control rural population growth
✘ 4. Manufacture agricultural tools

Question ID : **441009226495**
Option 1 ID : **441009886820**
Option 2 ID : **441009886819**
Option 3 ID : **441009886822**
Option 4 ID : **441009886821**

Q.11 Which of the following statements regarding the Inter-State Council under Article 263 is CORRECT?

Ans
✔ 1. It can be established by the President if deemed necessary in the public interest.
✘ 2. It is a permanent constitutional body.
✘ 3. It can be established by the Chief Justice of India if deemed necessary in the public interest.
✘ 4. It has adjudicatory powers to resolve interstate river water disputes.

Question ID : **441009672115**
Option 1 ID : **4410092642559**
Option 2 ID : **4410092642558**
Option 3 ID : **4410092642561**
Option 4 ID : **4410092642560**

Q.12 According to the Constitution of India, which of the following pairs of urban bodies and their corresponding areas is CORRECTLY matched?

Ans
✘ 1. Municipal Corporation – Transitional area moving from rural to urban
✘ 2. Municipal Board – Rural area with no urban characteristic
✘ 3. Nagar Panchayat – Fully developed urban metropolis
✔ 4. Municipal Council – Smaller urban area

Question ID : **441009671991**
Option 1 ID : **4410092642054**
Option 2 ID : **4410092642057**
Option 3 ID : **4410092642055**
Option 4 ID : **4410092642056**

QuickSarkari.com | WhatsApp Channel | Telegram: t.me/quick_sarkari

Q.13 **The Peninsular Plateau of India is mainly composed of which type of rocks among the following?**

Ans

✔ 1. Igneous and Metamorphic Rocks

✘ 2. Sedimentary Rocks only

✘ 3. Sedimentary and Metamorphic Rocks

✘ 4. Metamorphic Rocks only

Question ID : **441009321707**
Option 1 ID : **4410091253046**
Option 2 ID : **4410091253047**
Option 3 ID : **4410091253044**
Option 4 ID : **4410091253045**

Q.14 **Which theory is required for a complete explanation of ferromagnetic interactions?**

Ans

✔ 1. Electrodynamics

✘ 2. Classical mechanics

✘ 3. Newtonian

✘ 4. Quantum mechanics

Question ID : **441009513484**
Option 1 ID : **4410092008987**
Option 2 ID : **4410092008984**
Option 3 ID : **4410092008985**
Option 4 ID : **4410092008986**

Q.15 **Who won the doubles title at the 2025 Dubai Open Tennis Championship?**

Ans

✘ 1. Rohan Bopanna & Hubert Hurkacz

✘ 2. Daniil Medvedev & Andrey Rublev

✘ 3. Sumit Nagal & Denis Shapovalov

✔ 4. Yuki Bhambri & Alexei Popyrin

Question ID : **441009273053**
Option 1 ID : **4410091060762**
Option 2 ID : **4410091060760**
Option 3 ID : **4410091060761**
Option 4 ID : **4410091060759**

Q.16 **According to the Constitution of India, who has the authority to determine the salaries and privileges of the Judges of the Supreme Court?**

Ans

✔ 1. The Parliament of India, by law or as specified in the Second Schedule

✘ 2. The President of India, by notification in the Official Gazette

✘ 3. The Ministry of Law and Justice, under executive order

✘ 4. The Chief Justice of India, in consultation with the Council of Ministers

Question ID : **441009672166**
Option 1 ID : **4410092642760**
Option 2 ID : **4410092642758**
Option 3 ID : **4410092642761**
Option 4 ID : **4410092642759**

QuickSarkari.com | WhatsApp Channel | Telegram: t.me/quick_sarkari

Q.17 The ICC Champions Trophy 2025 was won by which cricket team?

Ans
✗ 1. England
✗ 2. Pakistan
✗ 3. Australia
✓ 4. India

Question ID : **4410091561074**
Option 1 ID : **4410096166468**
Option 2 ID : **4410096166469**
Option 3 ID : **4410096166467**
Option 4 ID : **4410096166466**

Q.18 The bond between oxygen and hemoglobin is _____.

Ans
✗ 1. Ionic
✓ 2. Reversible
✗ 3. Permanent
✗ 4. Irreversible

Question ID : **441009512743**
Option 1 ID : **4410092006105**
Option 2 ID : **4410092006104**
Option 3 ID : **4410092006103**
Option 4 ID : **4410092006102**

Q.19 The Qutub Minar, a UNESCO World Heritage Site, is located in which Indian city?

Ans
✓ 1. Delhi
✗ 2. Hyderabad
✗ 3. Jaipur
✗ 4. Agra

Question ID : **441009749087**
Option 1 ID : **4410092950169**
Option 2 ID : **4410092950171**
Option 3 ID : **4410092950170**
Option 4 ID : **4410092950168**

Q.20 When did Tilka Manjhi start the Manjhi Revolt against the British regime in Bihar?

Ans
✓ 1. 1785
✗ 2. 1833
✗ 3. 1850
✗ 4. 1832

Question ID : **441009106057**
Option 1 ID : **441009422269**
Option 2 ID : **441009422271**
Option 3 ID : **441009422272**
Option 4 ID : **441009422270**

Quick Sarkari

Section : **Arithmetical and Numerical Ability**

Q.1 **Find the simple interest (in ₹) on ₹3500 as a sum borrowed at 8% per year rate of interest for 4 years.**1430

Ans
✗ 1. 1160
✓ 2. 1120
✗ 3. 1060
✗ 4. 1080

Question ID : **441009852712**
Option 1 ID : **4410093363821**
Option 2 ID : **4410093363820**
Option 3 ID : **4410093363822**
Option 4 ID : **4410093363823**

Q.2 **Suresh bought some quantity of barley for ₹5,704. Half of it is sold at a profit of 39%. If Suresh wishes to make a profit of 7% on the whole, find the selling price (in ₹) of the remaining barley.**1689

Ans
✗ 1. 2,496
✓ 2. 2,139
✗ 3. 2,990
✗ 4. 1,492

Question ID : **441009895002**
Option 1 ID : **4410093534081**
Option 2 ID : **4410093534078**
Option 3 ID : **4410093534080**
Option 4 ID : **4410093534079**

Q.3 **The average weight of a family of five members whose weights are 40 kg, 49 kg, 57 kg, 76 kg and 38 kg is:**

Ans
✓ 1. 52 kg
✗ 2. 51 kg
✗ 3. 54 kg
✗ 4. 53 kg

Question ID : **441009582036**
Option 1 ID : **4410092283270**
Option 2 ID : **4410092283272**
Option 3 ID : **4410092283273**
Option 4 ID : **4410092283271**

QuickSarkari.com | WhatsApp Channel | Telegram: t.me/quick_sarkari

Q.4 The dimensions of a brick are 8.5 inch, 5.6 inch and 4.3 inch. Find volume (in inches^3) of biggest cube that can be cut out of the brick. (Rounded off to 2 decimal places)

Ans
✗ 1. 89.07
✓ 2. 79.51
✗ 3. 86.12
✗ 4. 83.42

Question ID : **4410099369**
Option 1 ID : **44100937258**
Option 2 ID : **44100937255**
Option 3 ID : **44100937257**
Option 4 ID : **44100937256**

Q.5 If Kundan's salary increases by 15% in the first year and by 1
the salary after two years?

Ans
✗ 1. 25.5%
✗ 2. 27.5%
✓ 3. 26.5%
✗ 4. 28.5%

Question ID : **44100911093**
Option 1 ID : **44100944199**
Option 2 ID : **44100944201**
Option 3 ID : **44100944200**
Option 4 ID : **44100944202**

Q.6 The population of a town increases by 10% every year. If the current population is 5,50,000, what will be the population of this town after 2 years?

Ans
✗ 1. 6,60,000
✗ 2. 6,70,000
✗ 3. 6,50,000
✓ 4. 6,65,500

Question ID : **44100947383**
Option 1 ID : **441009188627**
Option 2 ID : **441009188629**
Option 3 ID : **441009188628**
Option 4 ID : **441009188626**

QuickSarkari

Q.7 **A shopkeeper marks an article at ₹2,500. During a sale, he offers a discount of 12% on the marked price. However, the customer also has a coupon for an additional 5% off on the discounted price. What is the final price paid by the customer?**

Ans
✔ 1. ₹2,090
✘ 2. ₹2,100
✘ 3. ₹2,075
✘ 4. ₹2,125

Question ID : **4410091622405**
Option 1 ID : **4410096408393**
Option 2 ID : **4410096408392**
Option 3 ID : **4410096408395**
Option 4 ID : **4410096408394**

Q.8 A sailor travels a distance of 32 km in the upstream and 48 km

Find the speed (in km/hr) of the stream.

Ans
✘ 1. 3
✘ 2. 4
✘ 3. 2
✔ 4. 1

Question ID : **44100911952**
Option 1 ID : **44100947613**
Option 2 ID : **44100947614**
Option 3 ID : **44100947612**
Option 4 ID : **44100947611**

Q.9 **The HCF of two numbers is 12, and one of the numbers is 36. What is the smallest possible value of the other number?**

Ans
✘ 1. 18
✔ 2. 12
✘ 3. 36
✘ 4. 24

Question ID : **44100919419**
Option 1 ID : **44100977408**
Option 2 ID : **44100977407**
Option 3 ID : **44100977410**
Option 4 ID : **44100977409**

QuickSarkari.com | WhatsApp Channel | Telegram: t.me/quick_sarkari

Q.10 **A shopkeeper has 500 kg of tea, part of which he sells at 8% profit and the rest at 18% profit. The shopkeeper gains 10% on the whole. The quantity (in kg) he sold at 8% profit is:**

Ans
- ✗ 1. 350
- ✗ 2. 300
- ✓ 3. 400
- ✗ 4. 360

Question ID : **441009305004**
Option 1 ID : **4410091186687**
Option 2 ID : **4410091186688**
Option 3 ID : **4410091186686**
Option 4 ID : **4410091186689**

Q.11 **The LCM of four consecutive natural numbers is 840. Find the smallest number.**

Ans
- ✓ 1. 5
- ✗ 2. 8
- ✗ 3. 4
- ✗ 4. 6

Question ID : **441009525625**
Option 1 ID : **4410092057919**
Option 2 ID : **4410092057922**
Option 3 ID : **4410092057920**
Option 4 ID : **4410092057921**

Q.12 **The diameter of a solid metallic sphere is 12 cm. It is melted and drawn into a wire with a diameter of 8 mm having a uniform cross-section. Find the length of the wire.**710

Ans
- ✗ 1. 1200 cm
- ✓ 2. 1800 cm
- ✗ 3. 1600 cm
- ✗ 4. 1400 cm

Question ID : **441009621278**
Option 1 ID : **4410092439244**
Option 2 ID : **4410092439247**
Option 3 ID : **4410092439246**
Option 4 ID : **4410092439245**

QuickSarkari.com | WhatsApp Channel | Telegram: t.me/quick_sarkari

Q.13 A man travels three equal distances with speeds 10 km/hr, 12 km/hr and 15 km/hr. If he takes a total time of 7 hours, what is the total distance (in km)?

Ans

✗ 1. 56

✗ 2. 90

✓ 3. 84

✗ 4. 72

Question ID : **4410098561**
Option 1 ID : **44100933976**
Option 2 ID : **44100933979**
Option 3 ID : **44100933978**
Option 4 ID : **44100933977**

Q.14 Study the given bar graph and answer the question that follows

The given bar graph depicts the production of fertilisers by a company (in 10000 tonnes) over the years.

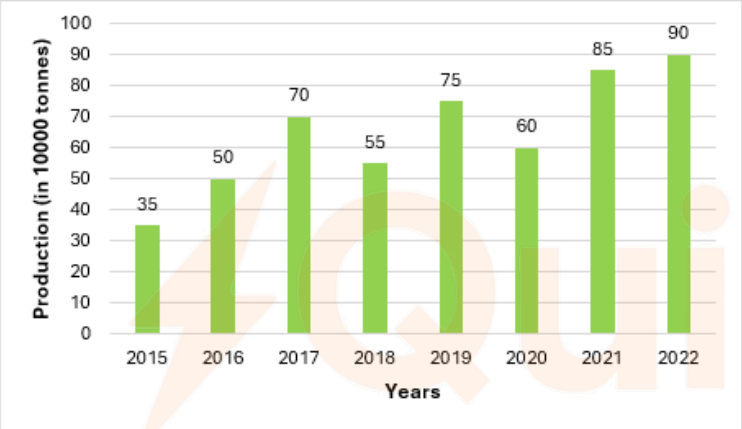

What was the percentage increase in the production of fertilisers in 2022 compared to that in 2020?

Ans

✓ 1. 50%

✗ 2. 45%

✗ 3. 40%

✗ 4. 60%

Question ID : **44100921477**
Option 1 ID : **44100985661**
Option 2 ID : **44100985660**
Option 3 ID : **44100985659**
Option 4 ID : **44100985662**

QuickSarkari.com | WhatsApp Channel | Telegram: t.me/quick_sarkari

Q.15 The slant height of a solid cone is 10 cm, and its radius is 6 cr

Ans
✗ 1. $94\ \pi$
✗ 2. $90\ \pi$
✓ 3. $96\ \pi$
✗ 4. $92\ \pi$

Question ID : **44100920310**
Option 1 ID : **44100980976**
Option 2 ID : **44100980978**
Option 3 ID : **44100980975**
Option 4 ID : **44100980977**

Q.16 Two taps can fill a cistern in 3 hours and 36 hours, respectively. A third tap can empty it in 4 hours. How long (in hours) will it take to fill one-third of the empty cistern, if all of them are opened together?3925

Ans
✗ 1. 4
✗ 2. 10
✓ 3. 3
✗ 4. 9

Question ID : **441009897238**
Option 1 ID : **4410093543023**
Option 2 ID : **4410093543025**
Option 3 ID : **4410093543022**
Option 4 ID : **4410093543024**

Q.17 If 28, K, 56 and 136 are in continued proportion, then find the value of K.

Ans
✗ 1. 62
✓ 2. 68
✗ 3. 79
✗ 4. 75

Question ID : **4410096016**
Option 1 ID : **44100923841**
Option 2 ID : **44100923842**
Option 3 ID : **44100923844**
Option 4 ID : **44100923843**

Q.18 A shopkeeper buys goods at 20% discount on the labeled price and sells them at the labeled price. What is his profit percentage?

Ans
✗ 1. 20%
✗ 2. 16%
✗ 3. 30%
✓ 4. 25%

Question ID : **4410091622221**
Option 1 ID : **4410096407672**
Option 2 ID : **4410096407674**
Option 3 ID : **4410096407675**
Option 4 ID : **4410096407673**

QuickSarkari.com | WhatsApp Channel | Telegram: t.me/quick_sarkari

Q.19 A and B can do a piece of work in 5 days and 8 days, respectively. How many days will both take to complete the work together?

Ans
✗ 1. $4\frac{1}{4}$ days
✗ 2. $2\frac{1}{5}$ days
✗ 3. $5\frac{1}{13}$ days
✓ 4. $3\frac{1}{13}$ days

Question ID : **4410096051**
Option 1 ID : **44100923983**
Option 2 ID : **44100923981**
Option 3 ID : **44100923984**
Option 4 ID : **44100923982**

Q.20 A sum of ₹13,020 is to be divided among A, B, C and D such that the shares of A and B are in the ratio 2 : 3, the shares of B and C are in the ratio 4 : 5, and the shares of C and D are in the ratio 6 : 7. Find the share of A.

Ans
✗ 1. ₹1,849
✗ 2. ₹1,948
✗ 3. ₹1,894
✓ 4. ₹1,984

Question ID : **441009899132**
Option 1 ID : **4410093550601**
Option 2 ID : **4410093550599**
Option 3 ID : **4410093550600**
Option 4 ID : **4410093550598**

Section : **English Language and Comprehension**

Q.1 In the given question, a statement divided into different segments is given. Rearrange all the segments to form a coherent statement.
(A) the teacher encouraged
(B) clearly during the group activity
(C) them to think critically and
(D) express their opinions

Ans
✓ 1. ACDB
✗ 2. DBCA
✗ 3. BDCA
✗ 4. ABCD

Question ID : **4410091132341**
Option 1 ID : **4410094464770**
Option 2 ID : **4410094464772**
Option 3 ID : **4410094464773**
Option 4 ID : **4410094464771**

QuickSarkari.com | WhatsApp Channel | Telegram: t.me/quick_sarkari

Q.2 **Parts of a sentence are given below in jumbled order. Arrange the parts in the correct order to form a meaningful sentence.**

The inclusiveness of Indian society
P: of every caste and creed
Q: by creating space for people
R: of social and cultural life
S: not only acknowledges differences
T: but also weaves them into the fabric

Ans
✗ 1. P S Q T R
✗ 2. S Q P T R
✗ 3. T P Q S R
✓ 4. S P T R Q

Question ID : **4410091096150**
Option 1 ID : **4410094321978**
Option 2 ID : **4410094321977**
Option 3 ID : **4410094321980**
Option 4 ID : **4410094321979**

Q.3 **Select the appropriate preposition to fill in the blank.**

The discussion will take place _____ the senior members of the committee.

Ans
✗ 1. across
✗ 2. by
✓ 3. among
✗ 4. between

Question ID : **4410091027497**
Option 1 ID : **4410094061528**
Option 2 ID : **4410094061529**
Option 3 ID : **4410094061530**
Option 4 ID : **4410094061531**

Q.4 **Identify the relationship between the first pair of words and choose the option that best completes the analogy.**

Metaphor : Poetry :: Statistic : ?

Ans
✗ 1. Fiction
✗ 2. Grammar
✓ 3. Analysis
✗ 4. Painting

Question ID : **4410091532192**
Option 1 ID : **4410096051818**
Option 2 ID : **4410096051821**
Option 3 ID : **4410096051819**
Option 4 ID : **4410096051820**

QuickSarkari.com | WhatsApp Channel | Telegram: t.me/quick_sarkari

Q.5 **Select the option that can be used as a one-word substitute for the underlined segment in the given sentence.**

My college professor is a person who cannot be corrected or improved.

Ans

✔ 1. incorrigible

✘ 2. insolent

✘ 3. incurable

✘ 4. infallible

Question ID : **441009159894**
Option 1 ID : **441009634220**
Option 2 ID : **441009634219**
Option 3 ID : **441009634222**
Option 4 ID : **441009634221**

Q.6 **Fill in the blanks with the correct option.**

He quoted from ___ Bible and referred to ___ Book of Genesis.

Ans

✘ 1. a, the

✔ 2. the, the

✘ 3. a, a

✘ 4. the, a

Question ID : **4410091126885**
Option 1 ID : **4410094443096**
Option 2 ID : **4410094443095**
Option 3 ID : **4410094443098**
Option 4 ID : **4410094443097**

Q.7 **Choose the word that is similar in meaning to the underlined word.**

The children were delighted by the magician's amusing tricks.

Ans

✘ 1. tedious

✘ 2. impressive

✘ 3. sombre

✔ 4. entertaining

Question ID : **4410091555195**
Option 1 ID : **4410096143391**
Option 2 ID : **4410096143393**
Option 3 ID : **4410096143394**
Option 4 ID : **4410096143392**

QuickSarkari

Q.8 **Select the option with the correct spelling to replace the underlined word in the given sentence.**
The problem was, however, solved rather ingenously.

Ans
✔ 1. ingeniously
✘ 2. ingeniousily
✘ 3. inginiously
✘ 4. ingeneously

Question ID : **4410091544941**
Option 1 ID : **4410096102817**
Option 2 ID : **4410096102816**
Option 3 ID : **4410096102815**
Option 4 ID : **4410096102818**

Q.9 **In the following sentence, a segment is highlighted. You are required to replace the highlighted text with the correct proverb given in the options.**

Even though both negotiators were known for their cunning, in this case, it was truly a matter of one cunning person matching wits with another.

Ans
✘ 1. empty vessels make the most noise
✔ 2. diamonds cut diamonds
✘ 3. birds of a feather flock together
✘ 4. every ass likes to hear himself bray

Question ID : **4410091691008**
Option 1 ID : **4410096670240**
Option 2 ID : **4410096670238**
Option 3 ID : **4410096670241**
Option 4 ID : **4410096670239**

Q.10 **I don't want to spoil your plans, but the concert has been cancelled due to heavy rain.**

Which idiom can best replace the underlined words?

Ans
✔ 1. Rain on Your Parade
✘ 2. Take a rain check
✘ 3. Like a cakewalk
✘ 4. Beat Around the Bush

Question ID : **4410091275758**
Option 1 ID : **4410095035027**
Option 2 ID : **4410095035028**
Option 3 ID : **4410095035025**
Option 4 ID : **4410095035026**

QuickSarkari.com | WhatsApp Channel | Telegram: t.me/quick_sarkari

Q.11 **Choose the most appropriate option to fill in the given blanks.**

_____ he is young, he is very wise _____ mature for his age.

Ans

✗ 1. Even though, or

✗ 2. Though, but

✓ 3. Although, and

✗ 4. Although, but

Question ID : **4410091126963**
Option 1 ID : **4410094443406**
Option 2 ID : **4410094443404**
Option 3 ID : **4410094443407**
Option 4 ID : **4410094443405**

Q.12 **Select the option that is the most appropriate antonym of the highlighted word in the given sentence.**
He was known as a miser who rarely spent money.

Ans

✓ 1. spendthrift

✗ 2. stingy

✗ 3. frugal

✗ 4. thrifty

Question ID : **4410091603197**
Option 1 ID : **4410096331984**
Option 2 ID : **4410096331985**
Option 3 ID : **4410096331987**
Option 4 ID : **4410096331986**

Q.13 **Select the most appropriate option to fill in the blank.**

_____ large quantity of petrol escaped from the tank.

Ans

✗ 1. No article required

✓ 2. A

✗ 3. The

✗ 4. An

Question ID : **441009204906**
Option 1 ID : **441009805893**
Option 2 ID : **441009805890**
Option 3 ID : **441009805891**
Option 4 ID : **441009805892**

Quick Sarkari

Q.14 **Choose the correct verb to complete the sentence.**

Yesterday, she _____ her homework before dinner.

Ans

✗ 1. doing

✗ 2. do

✗ 3. does

✓ 4. did

Question ID : **4410091123450**
Option 1 ID : **4410094429366**
Option 2 ID : **4410094429365**
Option 3 ID : **4410094429368**
Option 4 ID : **4410094429367**

Q.15 **Choose the correct spelling of the highlighted word from the given options.**

The students protested against the sudden seperation of their class sections.

Ans

✗ 1. seperaition

✗ 2. saparetion

✗ 3. separasion

✓ 4. separation

Question ID : **4410091362884**
Option 1 ID : **4410095383452**
Option 2 ID : **4410095383454**
Option 3 ID : **4410095383455**
Option 4 ID : **4410095383453**

Quick Sarkari

Comprehension:

Read the passage carefully and answer the following questions.
The rise of digital communication, from emails to instant messaging, has led to a significant decrease in the volume of physical letters. This posed a major challenge to India Post's traditional business model and its primary source of income. As a direct result of this decline, India Post strategically leveraged its unparalleled network of over 1.5 lakh post offices. It became a key logistics partner for e-commerce companies like Amazon and Flipkart. This partnership has caused a dramatic increase in the volume of packages and parcels handled, effectively compensating for the loss from letter mail.
The expansion of online retail has fundamentally reshaped the purpose of India Post. The boom in e-commerce has provided a new and essential source of revenue for the postal service. India Post has capitalised on its unprecedented network of over 1.5 lakh post offices, especially its significant presence in rural areas, to become a vital logistics partner for major e-commerce platforms like Amazon and Flipkart. This collaboration has resulted in a substantial increase in the volume of packages and parcels it manages, effectively offsetting the decline from traditional mail. India Post is also proactively partnering with various organisations and government initiatives to support rural entrepreneurs, including women-led self-help groups. For small vendors, using India Post allows them to leverage the service's long-standing reputation for trust, which helps build consumer confidence, especially in non-metro areas where the postman is a familiar and respected figure. Furthermore, India Post's services are more economical than private courier companies. These lower shipping costs can lead to more competitive product pricing, making online shopping a more appealing option for budget-conscious consumers.

SubQuestion No : 16

Q.16 Identify the correct structure of the passage.

Ans

✗ 1. compare and contrast

✗ 2. chronological

✓ 3. cause and effect

✗ 4. sequence

Question ID : **4410091300940**
Option 1 ID : **4410095136068**
Option 2 ID : **4410095136066**
Option 3 ID : **4410095136067**
Option 4 ID : **4410095136069**

QuickSarkari

Comprehension:

Read the passage carefully and answer the following questions.
The rise of digital communication, from emails to instant messaging, has led to a significant decrease in the volume of physical letters. This posed a major challenge to India Post's traditional business model and its primary source of income. As a direct result of this decline, India Post strategically leveraged its unparalleled network of over 1.5 lakh post offices. It became a key logistics partner for e-commerce companies like Amazon and Flipkart. This partnership has caused a dramatic increase in the volume of packages and parcels handled, effectively compensating for the loss from letter mail.
The expansion of online retail has fundamentally reshaped the purpose of India Post. The boom in e-commerce has provided a new and essential source of revenue for the postal service. India Post has capitalised on its unprecedented network of over 1.5 lakh post offices, especially its significant presence in rural areas, to become a vital logistics partner for major e-commerce platforms like Amazon and Flipkart. This collaboration has resulted in a substantial increase in the volume of packages and parcels it manages, effectively offsetting the decline from traditional mail. India Post is also proactively partnering with various organisations and government initiatives to support rural entrepreneurs, including women-led self-help groups. For small vendors, using India Post allows them to leverage the service's long-standing reputation for trust, which helps build consumer confidence, especially in non-metro areas where the postman is a familiar and respected figure. Furthermore, India Post's services are more economical than private courier companies. These lower shipping costs can lead to more competitive product pricing, making online shopping a more appealing option for budget-conscious consumers.

SubQuestion No : 17

Q.17 Choose the correct summary of the passage.

Ans

✗ 1. The passage summarises that traditional letter system was a convenient mode for transaction.

✓ 2. The passage summarises that the growth of the e-commerce facility has completely revolutionised India Post by making it a crucial financial inclusion partner and a key supporter of local businesses.

✗ 3. The passage summarises that the government has encouraged new platforms like Amazon and Flipkart to flourish by excluding India Post from the logistics and supply chain business.

✗ 4. The passage summarises that the rise of e-commerce has been the sole factor in the decline of traditional letter mail.

Question ID : **4410091300941**
Option 1 ID : **4410095136071**
Option 2 ID : **4410095136072**
Option 3 ID : **4410095136073**
Option 4 ID : **4410095136070**

QuickSarkari.com | WhatsApp Channel | Telegram: t.me/quick_sarkari

Comprehension:

Read the passage carefully and answer the following questions.
The rise of digital communication, from emails to instant messaging, has led to a significant decrease in the volume of physical letters. This posed a major challenge to India Post's traditional business model and its primary source of income. As a direct result of this decline, India Post strategically leveraged its unparalleled network of over 1.5 lakh post offices. It became a key logistics partner for e-commerce companies like Amazon and Flipkart. This partnership has caused a dramatic increase in the volume of packages and parcels handled, effectively compensating for the loss from letter mail.
The expansion of online retail has fundamentally reshaped the purpose of India Post. The boom in e-commerce has provided a new and essential source of revenue for the postal service. India Post has capitalised on its unprecedented network of over 1.5 lakh post offices, especially its significant presence in rural areas, to become a vital logistics partner for major e-commerce platforms like Amazon and Flipkart. This collaboration has resulted in a substantial increase in the volume of packages and parcels it manages, effectively offsetting the decline from traditional mail. India Post is also proactively partnering with various organisations and government initiatives to support rural entrepreneurs, including women-led self-help groups. For small vendors, using India Post allows them to leverage the service's long-standing reputation for trust, which helps build consumer confidence, especially in non-metro areas where the postman is a familiar and respected figure. Furthermore, India Post's services are more economical than private courier companies. These lower shipping costs can lead to more competitive product pricing, making online shopping a more appealing option for budget-conscious consumers.

SubQuestion No : 18

Q.18 Select an appropriate title for the passage.

Ans

✗ 1. Financial Inclusion of Rural People: A Key Initiative by the Indian Government

✗ 2. The Decline of Traditional Letter Writing in the Digital Age

✓ 3. The Evolution of India Post in the Age of e-Commerce

✗ 4. The Role of Amazon and Flipkart in E-commerce

Question ID : **4410091300942**
Option 1 ID : **4410095136077**
Option 2 ID : **4410095136075**
Option 3 ID : **4410095136076**
Option 4 ID : **4410095136074**

QuickSarkari

Comprehension:

Read the passage carefully and answer the following questions.
The rise of digital communication, from emails to instant messaging, has led to a significant decrease in the volume of physical letters. This posed a major challenge to India Post's traditional business model and its primary source of income. As a direct result of this decline, India Post strategically leveraged its unparalleled network of over 1.5 lakh post offices. It became a key logistics partner for e-commerce companies like Amazon and Flipkart. This partnership has caused a dramatic increase in the volume of packages and parcels handled, effectively compensating for the loss from letter mail.
The expansion of online retail has fundamentally reshaped the purpose of India Post. The boom in e-commerce has provided a new and essential source of revenue for the postal service. India Post has capitalised on its unprecedented network of over 1.5 lakh post offices, especially its significant presence in rural areas, to become a vital logistics partner for major e-commerce platforms like Amazon and Flipkart. This collaboration has resulted in a substantial increase in the volume of packages and parcels it manages, effectively offsetting the decline from traditional mail. India Post is also proactively partnering with various organisations and government initiatives to support rural entrepreneurs, including women-led self-help groups. For small vendors, using India Post allows them to leverage the service's long-standing reputation for trust, which helps build consumer confidence, especially in non-metro areas where the postman is a familiar and respected figure. Furthermore, India Post's services are more economical than private courier companies. These lower shipping costs can lead to more competitive product pricing, making online shopping a more appealing option for budget-conscious consumers.

SubQuestion No : 19

Q.19 Which of the following is a fact mentioned in the passage?

Ans ✔ 1. For small villages, India Post is a reputed institution; hence, it creates trust between vendors and consumers.

✘ 2. Due to the rise of e-commerce, there is a substantial decrease in the demand for India Post's services.

✘ 3. India Post is expensive and slow in logistical supply.

✘ 4. India Post ensures financial exclusion of rural entrepreneurs.

Question ID : **4410091300943**
Option 1 ID : **4410095136081**
Option 2 ID : **4410095136080**
Option 3 ID : **4410095136078**
Option 4 ID : **4410095136079**

QuickSarkari.com | WhatsApp Channel | Telegram: t.me/quick_sarkari

Comprehension:

Read the passage carefully and answer the following questions.
The rise of digital communication, from emails to instant messaging, has led to a significant decrease in the volume of physical letters. This posed a major challenge to India Post's traditional business model and its primary source of income. As a direct result of this decline, India Post strategically leveraged its unparalleled network of over 1.5 lakh post offices. It became a key logistics partner for e-commerce companies like Amazon and Flipkart. This partnership has caused a dramatic increase in the volume of packages and parcels handled, effectively compensating for the loss from letter mail.
The expansion of online retail has fundamentally reshaped the purpose of India Post. The boom in e-commerce has provided a new and essential source of revenue for the postal service. India Post has capitalised on its unprecedented network of over 1.5 lakh post offices, especially its significant presence in rural areas, to become a vital logistics partner for major e-commerce platforms like Amazon and Flipkart. This collaboration has resulted in a substantial increase in the volume of packages and parcels it manages, effectively offsetting the decline from traditional mail. India Post is also proactively partnering with various organisations and government initiatives to support rural entrepreneurs, including women-led self-help groups. For small vendors, using India Post allows them to leverage the service's long-standing reputation for trust, which helps build consumer confidence, especially in non-metro areas where the postman is a familiar and respected figure. Furthermore, India Post's services are more economical than private courier companies. These lower shipping costs can lead to more competitive product pricing, making online shopping a more appealing option for budget-conscious consumers.

SubQuestion No : 20

Q.20 Select the correct synonym for the word 'leverage' given in the passage.

Ans

✗ 1. converge

✗ 2. affluent

✓ 3. influence

✗ 4. inflation

Question ID : **4410091300944**
Option 1 ID : **4410095136084**
Option 2 ID : **4410095136083**
Option 3 ID : **4410095136082**
Option 4 ID : **4410095136085**

Section : **Hindi Language and Comprehension**

Q.1 दिए गए वाक्य के रिक्त स्थान में क्रिया शब्द का प्रयोग करें -
'शीला ने सुबह सेब था।'

Ans

✗ 1. खा

✗ 2. खाता

✗ 3. खाओ

✓ 4. खाया

Question ID : **4410091528072**
Option 1 ID : **4410096035481**
Option 2 ID : **4410096035483**
Option 3 ID : **4410096035484**
Option 4 ID : **4410096035482**

Q.2 दिये गये वाक्य के किस भाग में वर्तनी की त्रुटि है?

प्रेमचंद के साहित्यिक जीवन का चर्मोत्कार्ष उनके गोदान उपन्यास से माना जाता है।

Ans

✗ 1. साहित्यिक जीवन का

✗ 2. उनके गोदान उपन्यास से माना जाता है।

✗ 3. प्रेमचंद के

✓ 4. चर्मोत्कार्ष

Question ID : **4410091547233**
Option 1 ID : **4410096111804**
Option 2 ID : **4410096111806**
Option 3 ID : **4410096111803**
Option 4 ID : **4410096111805**

Q.3 निम्न में से 'मुर्गा चुगे , अपना पेट भरे' लोकोक्ति का सही अर्थ कौन-सा है ?

Ans

✗ 1. गरीब के लिए थोड़ी हानि भी असह्य है

✗ 2. जोखिम का काम कौन करेगा

✓ 3. जो भी करता है, अपने लिए ही करता है

✗ 4. कोई पास नहीं फटक सकता

Question ID : **4410091626337**
Option 1 ID : **4410096423739**
Option 2 ID : **4410096423737**
Option 3 ID : **4410096423738**
Option 4 ID : **4410096423740**

Q.4 निम्नलिखित वाक्य के रिक्त स्थान में उचित क्रिया शब्द का प्रयोग करें -
'रंजीत निबंध रहा है।'

Ans

✗ 1. लिखना

✗ 2. लिखो

✓ 3. लिख

✗ 4. लिखवाना

Question ID : **4410091242003**
Option 1 ID : **4410094901360**
Option 2 ID : **4410094901361**
Option 3 ID : **4410094901362**
Option 4 ID : **4410094901363**

QuickSarkari.com | WhatsApp Channel | Telegram: t.me/quick_sarkari

Q.5 दिए गए वाक्य में संख्यावाचक विशेषण शब्द का चयन करके रिक्त स्थान की पूर्ति करें -
अंतर्राष्ट्रीय विज्ञान सम्मेलन में----------शोधकर्ताओं ने असाधारण प्रदर्शन किया।

Ans
✗ 1. भारतीय
✓ 2. पाँच हजार
✗ 3. वरिष्ठ
✗ 4. युवा

Question ID : **4410091547156**
Option 1 ID : **4410096111500**
Option 2 ID : **4410096111498**
Option 3 ID : **4410096111497**
Option 4 ID : **4410096111499**

Q.6 उपयुक्त कारक चिह्न का चयन कर वाक्य को पूर्ण कीजिए।
मायरा बस ..... स्कूल जाती है।

Ans
✗ 1. को
✓ 2. से
✗ 3. के लिए
✗ 4. ऊपर

Question ID : **4410091297577**
Option 1 ID : **4410095122415**
Option 2 ID : **4410095122412**
Option 3 ID : **4410095122414**
Option 4 ID : **4410095122413**

Q.7 उनकी छाती धड़कने लगी ।
उपर्युक्त रेखांकित शब्द का पर्यायवाची क्या होगा ?

Ans
✗ 1. फेफड़ा
✓ 2. वक्ष
✗ 3. नितंब
✗ 4. यकृत

Question ID : **4410091624850**
Option 1 ID : **4410096417927**
Option 2 ID : **4410096417930**
Option 3 ID : **4410096417929**
Option 4 ID : **4410096417928**

QuickSarkari.com | WhatsApp Channel | Telegram: t.me/quick_sarkari

Q.8 'आदि से अंत तक' वाक्यांश के लिए सार्थक शब्द क्या होगा?

Ans
✗ 1. आमरण
✓ 2. आद्योपांत
✗ 3. आजीवन
✗ 4. आन्तगर्व

Question ID : **4410091546757**
Option 1 ID : **4410096109898**
Option 2 ID : **4410096109896**
Option 3 ID : **4410096109895**
Option 4 ID : **4410096109897**

Q.9 निम्न में से 'तीर हाथ से निकल जाना ' मुहावरे का सही अर्थ कौन-सा है ?

Ans
✗ 1. झगड़ा खड़ा करना
✓ 2. स्थिति का वश से बाहर हो जाना
✗ 3. उपाय निकालना
✗ 4. झूठा कलंक लगाना

Question ID : **4410091626279**
Option 1 ID : **4410096423508**
Option 2 ID : **4410096423505**
Option 3 ID : **4410096423506**
Option 4 ID : **4410096423507**

Q.10 "चुटकी लेना"- मुहावरे का क्या अर्थ है?

Ans
✗ 1. बहुत चालाक होना
✓ 2. हँसी उड़ाना
✗ 3. तुरंत काम कर लेना
✗ 4. लाभ ही लाभ होना

Question ID : **4410091618323**
Option 1 ID : **4410096392157**
Option 2 ID : **4410096392155**
Option 3 ID : **4410096392156**
Option 4 ID : **4410096392158**

Q.11 'आगे नाथ न पीछे पगहा' लोकोक्ति का क्या अर्थ है?

Ans
✗ 1. अकेला आदमी लाचार होता है
✓ 2. जिसका कोई न हो
✗ 3. हर हालत में एक जैसी विरक्ति
✗ 4. विश्वासपात्र न होना

Question ID : **4410091547203**
Option 1 ID : **4410096111685**
Option 2 ID : **4410096111684**
Option 3 ID : **4410096111686**
Option 4 ID : **4410096111683**

QuickSarkari.com | WhatsApp Channel | Telegram: t.me/quick_sarkari

Q.12 नीचे दिए गए वाक्य व्युत्क्रम में है चार विकल्पों कोई एक वाक्य जो क्रम में है उसका चयन कीजिए।

Ans

✗ 1. माँ के सर्दियों में बन गई है आदत झुककर चलने की

✗ 2. आदत बन गई है झुककर चलने की सर्दियों में माँ के

✗ 3. झुककर चलने की बन गई है आदत माँ के सर्दियों में

✓ 4. सर्दियों में माँ के झुककर चलने की आदत बन गई है

Question ID : **4410091275633**
Option 1 ID : **4410091070709**
Option 2 ID : **4410091070711**
Option 3 ID : **4410091070712**
Option 4 ID : **4410091070710**

Q.13 निम्न में से वाक्य में रेखांकित शब्द का विलोम शब्द कौन-सा है ?
'घर का भोजन <u>अच्छा</u> होता है।'

Ans

✗ 1. बुराई

✗ 2. अनुज

✓ 3. बुरा

✗ 4. सुपाच्य

Question ID : **4410091626532**
Option 1 ID : **4410096424503**
Option 2 ID : **4410096424502**
Option 3 ID : **4410096424500**
Option 4 ID : **4410096424501**

Q.14 रिक्त स्थान की पूर्ति उपयुक्त गुणवाचक विशेषण से करें-
..... मानवों की सेवा करो।

Ans

✗ 1. सभी

✗ 2. इन्हीं

✓ 3. पीड़ित

✗ 4. कुछ

Question ID : **4410091251244**
Option 1 ID : **4410094938160**
Option 2 ID : **4410094938157**
Option 3 ID : **4410094938159**
Option 4 ID : **4410094938158**

Q.15 दिए गए वाक्यों में से वर्तनी की दृष्टि से शुद्ध वाक्य का चयन कीजिए।

Ans

✗ 1. मेरे उनसे परिचय कर दो।

✓ 2. मेरा उनसे परिचय करा दो।

✗ 3. मेरा उनसे परिजय करा दो।

✗ 4. मेरा उनसे परीचय करा दो।

Question ID : **4410091626463**
Option 1 ID : **4410096424227**
Option 2 ID : **4410096424225**
Option 3 ID : **4410096424226**
Option 4 ID : **4410096424224**

Quick Sarkari

Comprehension:

निम्नलिखित प्रश्नों के उत्तर दिए गए गद्यांश के आधार पर दीजिए।
भाषा शब्द संस्कृत के भाष् धातु से बना है। जिसका अर्थ है- बोलना। कक्षा में अध्यापक अपनी बात बोलकर समझाते हैं और छात्र सुनकर उस बात को समझते हैं। बच्चा माता-पिता से बोलकर अपने मन के भाव प्रकट करता है और वे उसकी बात सुनकर समझते हैं। इसी प्रकार, छात्र भी अध्यापक द्वारा समझायी गयी बात को लिखकर व्यक्त करते हैं और अध्यापक उसे पढ़कर मूल्यांकन करते हैं। भावों का आदान-प्रदान करने के लिए सभी प्राणियों द्वारा मन की भाषा का प्रयोग किया जाता है। पशु पक्षियों की बोलियों को भाषा नहीं कहा जाता। इसके द्वारा मनुष्य के भावों, विचारों और भावनाओं को व्यक्त किया जाता है। भाषा की परिभाषा देना कठिन कार्य है। भाषा वैज्ञानिकों ने इसकी अनेक परिभाषा दी हैं। किन्तु ये परिभाषाएं पूर्ण नहीं हैं। हर एक परिभाषा में कुछ न कुछ त्रुटि पायी जाती है। सार्थक शब्दों के समूह या संकेत को भाषा कहते हैं। यह संकेत स्पष्ट होना चाहिए। मनुष्य के जटिल मनोभावों को भाषा व्यक्त करती है; किन्तु केवल संकेत ही भाषा नहीं हो पाती है।

SubQuestion No : 16

Q.16 गद्यांश के लिए उपयुक्त शीर्षक का चयन कीजिए।

Ans

✗ 1. परिभाषा

✗ 2. लिंग

✗ 3. व्याकरण

✓ 4. भाषा

Question ID : **4410091624901**
Option 1 ID : **4410096418130**
Option 2 ID : **4410096418129**
Option 3 ID : **4410096418128**
Option 4 ID : **4410096418127**

Comprehension:

निम्नलिखित प्रश्नों के उत्तर दिए गए गद्यांश के आधार पर दीजिए।
भाषा शब्द संस्कृत के भाष् धातु से बना है। जिसका अर्थ है- बोलना। कक्षा में अध्यापक अपनी बात बोलकर समझाते हैं और छात्र सुनकर उस बात को समझते हैं। बच्चा माता-पिता से बोलकर अपने मन के भाव प्रकट करता है और वे उसकी बात सुनकर समझते हैं। इसी प्रकार, छात्र भी अध्यापक द्वारा समझायी गयी बात को लिखकर व्यक्त करते हैं और अध्यापक उसे पढ़कर मूल्यांकन करते हैं। भावों का आदान-प्रदान करने के लिए सभी प्राणियों द्वारा मन की भाषा का प्रयोग किया जाता है। पशु पक्षियों की बोलियों को भाषा नहीं कहा जाता। इसके द्वारा मनुष्य के भावों, विचारों और भावनाओं को व्यक्त किया जाता है। भाषा की परिभाषा देना कठिन कार्य है। भाषा वैज्ञानिकों ने इसकी अनेक परिभाषा दी हैं। किन्तु ये परिभाषाएं पूर्ण नहीं हैं। हर एक परिभाषा में कुछ न कुछ त्रुटि पायी जाती है। सार्थक शब्दों के समूह या संकेत को भाषा कहते हैं। यह संकेत स्पष्ट होना चाहिए। मनुष्य के जटिल मनोभावों को भाषा व्यक्त करती है; किन्तु केवल संकेत ही भाषा नहीं हो पाती है।

SubQuestion No : 17

Q.17 निम्न में से भाषा शब्द संस्कृत के किस धातु से बना है ?

Ans

✗ 1. वाणी

✓ 2. भाष्

✗ 3. भाखा

✗ 4. बोली

Question ID : **4410091624902**
Option 1 ID : **4410096418133**
Option 2 ID : **4410096418132**
Option 3 ID : **4410096418131**
Option 4 ID : **4410096418134**

Comprehension:

निम्नलिखित प्रश्नों के उत्तर दिए गए गद्यांश के आधार पर दीजिए।
भाषा शब्द संस्कृत के भाष् धातु से बना है। जिसका अर्थ है- बोलना। कक्षा में अध्यापक अपनी बात बोलकर समझाते हैं और छात्र सुनकर उस बात को समझते हैं। बच्चा माता-पिता से बोलकर अपने मन के भाव प्रकट करता है और वे उसकी बात सुनकर समझते हैं। इसी प्रकार, छात्र भी अध्यापक द्वारा समझायी गयी बात को लिखकर व्यक्त करते हैं और अध्यापक उसे पढ़कर मूल्यांकन करते हैं। भावों का आदान-प्रदान करने के लिए सभी प्राणियों द्वारा मन की भाषा का प्रयोग किया जाता है। पशु पक्षियों की बोलियों को भाषा नहीं कहा जाता। इसके द्वारा मनुष्य के भावों, विचारों और भावनाओं को व्यक्त किया जाता है। भाषा की परिभाषा देना कठिन कार्य है। भाषा वैज्ञानिकों ने इसकी अनेक परिभाषा दी हैं। किन्तु ये परिभाषाएं पूर्ण नहीं हैं। हर एक परिभाषा में कुछ न कुछ त्रुटि पायी जाती है। सार्थक शब्दों के समूह या संकेत को भाषा कहते हैं। यह संकेत स्पष्ट होना चाहिए। मनुष्य के जटिल मनोभावों को भाषा व्यक्त करती है; किन्तु केवल संकेत ही भाषा नहीं हो पाती है।

SubQuestion No : 18

Q.18 भाषा किसे कहते हैं?

Ans

✗ 1. शब्द के अर्थ को

✗ 2. वाक्यों के समूह को

✓ 3. सार्थक शब्दों के समूह को

✗ 4. अर्थ की निष्पत्ति को

Question ID : **4410091624903**
Option 1 ID : **4410096418136**
Option 2 ID : **4410096418137**
Option 3 ID : **4410096418135**
Option 4 ID : **4410096418138**

Comprehension:

निम्नलिखित प्रश्नों के उत्तर दिए गए गद्यांश के आधार पर दीजिए।
भाषा शब्द संस्कृत के भाष् धातु से बना है। जिसका अर्थ है- बोलना। कक्षा में अध्यापक अपनी बात बोलकर समझाते हैं और छात्र सुनकर उस बात को समझते हैं। बच्चा माता-पिता से बोलकर अपने मन के भाव प्रकट करता है और वे उसकी बात सुनकर समझते हैं। इसी प्रकार, छात्र भी अध्यापक द्वारा समझायी गयी बात को लिखकर व्यक्त करते हैं और अध्यापक उसे पढ़कर मूल्यांकन करते हैं। भावों का आदान-प्रदान करने के लिए सभी प्राणियों द्वारा मन की भाषा का प्रयोग किया जाता है। पशु पक्षियों की बोलियों को भाषा नहीं कहा जाता। इसके द्वारा मनुष्य के भावों, विचारों और भावनाओं को व्यक्त किया जाता है। भाषा की परिभाषा देना कठिन कार्य है। भाषा वैज्ञानिकों ने इसकी अनेक परिभाषा दी हैं। किन्तु ये परिभाषाएं पूर्ण नहीं हैं। हर एक परिभाषा में कुछ न कुछ त्रुटि पायी जाती है। सार्थक शब्दों के समूह या संकेत को भाषा कहते हैं। यह संकेत स्पष्ट होना चाहिए। मनुष्य के जटिल मनोभावों को भाषा व्यक्त करती है; किन्तु केवल संकेत ही भाषा नहीं हो पाती है।

SubQuestion No : 19

Q.19 निम्न में से गद्यांश में प्रयुक्त 'त्रुटि' का पर्यायवाची शब्द कौन-सा है ?

Ans

✗ 1. दुष्ट

✗ 2. नूह

✓ 3. चूक

✗ 4. भूख

Question ID : **4410091624904**
Option 1 ID : **4410096418142**
Option 2 ID : **4410096418141**
Option 3 ID : **4410096418139**
Option 4 ID : **4410096418140**

Comprehension:

निम्नलिखित प्रश्नों के उत्तर दिए गए गद्यांश के आधार पर दीजिए।
भाषा शब्द संस्कृत के भाष् धातु से बना है। जिसका अर्थ है- बोलना। कक्षा में अध्यापक अपनी बात बोलकर समझाते हैं और छात्र सुनकर उस बात को समझते हैं। बच्चा माता-पिता से बोलकर अपने मन के भाव प्रकट करता है और वे उसकी बात सुनकर समझते हैं। इसी प्रकार, छात्र भी अध्यापक द्वारा समझायी गयी बात को लिखकर व्यक्त करते हैं और अध्यापक उसे पढ़कर मूल्यांकन करते हैं। भावों का आदान-प्रदान करने के लिए सभी प्राणियों द्वारा मन की भाषा का प्रयोग किया जाता है। पशु पक्षियों की बोलियों को भाषा नहीं कहा जाता। इसके द्वारा मनुष्य के भावों, विचारों और भावनाओं को व्यक्त किया जाता है। भाषा की परिभाषा देना कठिन कार्य है। भाषा वैज्ञानिकों ने इसकी अनेक परिभाषा दी हैं। किन्तु ये परिभाषाएं पूर्ण नहीं हैं। हर एक परिभाषा में कुछ न कुछ त्रुटि पायी जाती है। सार्थक शब्दों के समूह या संकेत को भाषा कहते हैं। यह संकेत स्पष्ट होना चाहिए। मनुष्य के जटिल मनोभावों को भाषा व्यक्त करती है; किन्तु केवल संकेत ही भाषा नहीं हो पाती है।

SubQuestion No : 20

Q.20 निम्न में से गद्यांश में प्रयुक्त 'जटिल' शब्द का विलोम कौन-सा है ?

Ans

✗ 1. जंगम

✗ 2. अछूत

✓ 3. सरल

✗ 4. चेतन

Question ID : **4410091624905**
Option 1 ID : **4410096418143**
Option 2 ID : **4410096418144**
Option 3 ID : **4410096418145**
Option 4 ID : **4410096418146**

Section : **Discipline1**

Q.1 What is the primary aim of peace education as described in the context?

Ans

✗ 1. To prioritize economic growth through vocational skill training.

✗ 2. To focus on military strategies for national defense preparedness.

✗ 3. To encourage competition among learners for academic excellence.

✓ 4. To promote values and attitudes that lead to peaceful coexistence.

Question ID : **4410091636982**
Option 1 ID : **4410096465763**
Option 2 ID : **4410096465761**
Option 3 ID : **4410096465762**
Option 4 ID : **4410096465764**

Q.2 In what way can education promote international understanding?

Ans

✗ 1. By emphasizing only national achievements

✗ 2. By ignoring global issues

✓ 3. By teaching respect for cultural differences

✗ 4. By discouraging foreign language learning

Question ID : **4410091640962**
Option 1 ID : **4410096481021**
Option 2 ID : **4410096481019**
Option 3 ID : **4410096481020**
Option 4 ID : **4410096481022**

Quick Sarkari

Q.3 According to Piaget, which stage is characterized by the development of object permanence?

Ans
✗ 1. Formal operational stage
✓ 2. Sensorimotor stage
✗ 3. Preoperational stage
✗ 4. Concrete operational stage

Question ID : **4410091645775**
Option 1 ID : **4410096499629**
Option 2 ID : **4410096499626**
Option 3 ID : **4410096499627**
Option 4 ID : **4410096499628**

Q.4 Which stage of human development occurs before birth?

Ans
✗ 1. Early childhood
✗ 2. Late childhood
✓ 3. Prenatal development
✗ 4. Infancy

Question ID : **4410091676691**
Option 1 ID : **4410096615332**
Option 2 ID : **4410096615333**
Option 3 ID : **4410096615331**
Option 4 ID : **4410096615334**

Q.5 Which amendment of the Indian Constitution introduced the Right to Free and Compulsory Education?

Ans
✗ 1. 42nd Constitutional Amendment Act, 1976
✓ 2. 86th Constitutional Amendment Act, 2002
✗ 3. 73rd Constitutional Amendment Act, 1992
✗ 4. 44th Constitutional Amendment Act, 1978

Question ID : **4410091626504**
Option 1 ID : **4410096424388**
Option 2 ID : **4410096424390**
Option 3 ID : **4410096424391**
Option 4 ID : **4410096424389**

Q.6 What does Sociology of Education aim to provide, according to Ottaway?

Ans
✗ 1. A philosophical framework for learning.
✓ 2. A framework for studying education and society.
✗ 3. A historical account of educational practices.
✗ 4. A method for scientific experiments.

Question ID : **4410091651551**
Option 1 ID : **4410096521978**
Option 2 ID : **4410096521979**
Option 3 ID : **4410096521981**
Option 4 ID : **4410096521980**

Quick Sarkari

Q.7 **Which of the following is NOT considered a principle of development?**

Ans
✔ 1. Development is static in nature
✘ 2. Development follows a typical pattern
✘ 3. Development is a lifelong process
✘ 4. Development is multidimensional

Question ID : **4410091570124**
Option 1 ID : **4410096201499**
Option 2 ID : **4410096201498**
Option 3 ID : **4410096201497**
Option 4 ID : **4410096201500**

Q.8 **A district ensures every child attends school regularly with no dropouts. Which UEE goal under RTE is this?**

Ans
✔ 1. Universal access and retention
✘ 2. Curriculum expansion
✘ 3. Teacher promotion
✘ 4. Digital literacy

Question ID : **4410091568287**
Option 1 ID : **4410096194433**
Option 2 ID : **4410096194432**
Option 3 ID : **4410096194434**
Option 4 ID : **4410096194435**

Q.9 **The insistence of the Radhakrishnan Commission on incorporating religious and moral education in schools was based on the principle that educational institutions should:**

Ans
✘ 1. Enforce ritual practices of different faiths
✔ 2. Build ethical character without sectarian influence
✘ 3. Replace academic subjects with moral science
✘ 4. Promote a single national religion

Question ID : **4410091543112**
Option 1 ID : **4410096095489**
Option 2 ID : **4410096095490**
Option 3 ID : **4410096095491**
Option 4 ID : **4410096095488**

Quick Sarkari

Q.10 **When constructing a curriculum for a diverse classroom in India, which factor is most important to ensure inclusivity and relevance?**

Ans

✗ 1. Strict adherence to a single national language

✗ 2. Emphasis on rote memorization of common language

✓ 3. Representation of multiple cultures and languages

✗ 4. Exclusive focus on urban and rural issues

Question ID : **4410091678838**
Option 1 ID : **4410096623562**
Option 2 ID : **4410096623563**
Option 3 ID : **4410096623561**
Option 4 ID : **4410096623564**

Q.11 **Which factor is most likely to influence a child's personality development during early childhood?**

Ans

✗ 1. Left-handedness

✗ 2. Season of birth

✗ 3. Favorite color

✓ 4. Parental behavior

Question ID : **4410091622545**
Option 1 ID : **4410096408958**
Option 2 ID : **4410096408957**
Option 3 ID : **4410096408959**
Option 4 ID : **4410096408956**

Q.12 **Why is the study of sociology important for teachers?**

Ans

✓ 1. It helps understand students' social backgrounds.

✗ 2. It teaches only basic classroom management.

✗ 3. It replaces all major educational theories.

✗ 4. It focuses mainly on government policy issues.

Question ID : **4410091693097**
Option 1 ID : **4410096678430**
Option 2 ID : **4410096678432**
Option 3 ID : **4410096678429**
Option 4 ID : **4410096678431**

Q.13 **The caste system is best defined as:**

Ans

✓ 1. An endogamous hierarchy of status groups

✗ 2. A set of voluntary professional unions

✗ 3. A temporary social classification

✗ 4. A political alliance of groups

Question ID : **4410091570557**
Option 1 ID : **4410096203202**
Option 2 ID : **4410096203201**
Option 3 ID : **4410096209516**
Option 4 ID : **4410096203200**

QuickSarkari.com | WhatsApp Channel | Telegram: t.me/quick_sarkari

Q.14 **A child repeatedly fails and is forced to repeat the same class during elementary education. Which provision of the RTE Act is applicable in this case?**

Ans

✔ 1. Prohibition of detention

✘ 2. Continuous assessment

✘ 3. School recognition

✘ 4. Curriculum flexibility

Question ID : **4410091631463**
Option 1 ID : **4410096444066**
Option 2 ID : **4410096444065**
Option 3 ID : **4410096444064**
Option 4 ID : **4410096444067**

Q.15 **How do psychologists primarily define personality?**

Ans

✘ 1. As physical appearance

✘ 2. As a person's hobbies and interests

✔ 3. As a characteristic pattern of thinking, feeling, and acting

✘ 4. As social status

Question ID : **4410091601450**
Option 1 ID : **4410096325423**
Option 2 ID : **4410096325424**
Option 3 ID : **4410096325422**
Option 4 ID : **4410096325425**

Q.16 **Which activity best illustrates the development of fine motor skills in early childhood?**

Ans

✘ 1. Jumping over a small hurdle

✘ 2. Climbing up stairs

✘ 3. Running across the playground

✔ 4. Stringing beads onto a thread

Question ID : **4410091630105**
Option 1 ID : **4410096438527**
Option 2 ID : **4410096438528**
Option 3 ID : **4410096438529**
Option 4 ID : **4410096438526**

Quick Sarkari

Q.17 **Which factor is most directly related to the development of a child's personality?**

Ans

✗ 1. Mathematical ability

✗ 2. Favorite color

✗ 3. Height and weight

✓ 4. Family environment

Question ID : **4410091607429**
Option 1 ID : **4410096348689**
Option 2 ID : **4410096348691**
Option 3 ID : **4410096348688**
Option 4 ID : **4410096348690**

Q.18 **If a child encounters a completely new food and cannot connect it with their existing schema, what state do they experience?**

Ans

✗ 1. Assimilation

✓ 2. Disequilibrium

✗ 3. Organization

✗ 4. Adaptation

Question ID : **4410091601488**
Option 1 ID : **4410096325552**
Option 2 ID : **4410096325550**
Option 3 ID : **4410096325553**
Option 4 ID : **4410096325551**

Q.19 **What essential element does social equality require to ensure fairness in competition for social goods?**

Ans

✓ 1. Equality of opportunity

✗ 2. Economic redistribution

✗ 3. Political representation

✗ 4. Legal equality

Question ID : **4410091651129**
Option 1 ID : **4410096520626**
Option 2 ID : **4410096520628**
Option 3 ID : **4410096520629**
Option 4 ID : **4410096520627**

QuickSarkari.com | WhatsApp Channel | Telegram: t.me/quick_sarkari

Q.20 **Who was appointed as the Chairman of the University Education Commission set up in 1948-49 in India?**

Ans

✗ 1. Dr. D.S. Kothari

✗ 2. Dr. Zakir Hussain

✗ 3. Dr. A. Lakshmanaswami Mudaliar

✓ 4. Dr. S. Radhakrishnan

Question ID : **4410091604749**
Option 1 ID : **4410096338163**
Option 2 ID : **4410096338161**
Option 3 ID : **4410096338162**
Option 4 ID : **4410096338160**

Section : **Discipline2**

Q.1 **A teacher takes students outside to observe shadows at different times of the day and record their findings.**
Which aspect of experiential learning is reflected here?

Ans

✗ 1. Learning by memorising shadow definitions

✗ 2. Learning only through textbook diagrams

✗ 3. Learning through lecture notes alone

✓ 4. Learning through direct experience and reflection

Question ID : **4410091546820**
Option 1 ID : **4410096110150**
Option 2 ID : **4410096110149**
Option 3 ID : **4410096110151**
Option 4 ID : **4410096110148**

Q.2 **What is a primary benefit of viewing films with social and educational content?**

Ans

✗ 1. It distracts learners from self-awareness and critical reflection.

✗ 2. It limits understanding by focusing only on fictional experiences.

✓ 3. It encourages reflection on values, attitudes, and personal behavior.

✗ 4. It mainly provides entertainment without influencing personal thinking.

Question ID : **4410091610812**
Option 1 ID : **4410096362117**
Option 2 ID : **4410096362118**
Option 3 ID : **4410096362115**
Option 4 ID : **4410096362116**

QuickSarkari.com | WhatsApp Channel | Telegram: t.me/quick_sarkari

Q.3 **What is a primary objective of teaching mathematics at the elementary stage according to educational goals that emphasize foundational skills?**

Ans

✗ 1. To ensure students memorize complex mathematical formulas and equations early on without contextual understanding

✓ 2. To help learners develop fundamental arithmetic skills such as addition, subtraction, multiplication, and division efficiently

✗ 3. To focus exclusively on geometry and spatial reasoning while postponing numerical operations for later grades

✗ 4. To train students to use advanced technology tools as the main approach for mathematical problem-solving

Question ID : **4410091560874**
Option 1 ID : **4410096165698**
Option 2 ID : **4410096165699**
Option 3 ID : **4410096165700**
Option 4 ID : **4410096165701**

Q.4 **A mindfulness exercise invites students to slowly eat a raisin while paying attention to its texture, taste, and smell. This approach primarily introduces:**

Ans

✗ 1. Nutritional evaluation of food ingredients for sensory awareness

✗ 2. Rapid eating to increase the efficiency of sensory organs

✗ 3. Routine-based eating habits and behaviour patterns

✓ 4. Mindful sensory awareness and present-moment attention

Question ID : **4410091543226**
Option 1 ID : **4410096095945**
Option 2 ID : **4410096095946**
Option 3 ID : **4410096095947**
Option 4 ID : **4410096095944**

Q.5 **What is a primary benefit of learning to observe oneself?**

Ans

✗ 1. Avoiding self-reflection

✓ 2. Making self-improvement.

✗ 3. Observing others' patterns

✗ 4. Suppressing emotions

Question ID : **4410091690994**
Option 1 ID : **4410096670184**
Option 2 ID : **4410096670183**
Option 3 ID : **4410096670182**
Option 4 ID : **4410096670185**

QuickSarkari.com | WhatsApp Channel | Telegram: t.me/quick_sarkari

Q.6 **Which principle of teaching emphasizes starting instruction from what is already familiar to the learner?**

Ans

✗ 1. Ensuring active participation through hands-on learning activities daily.

✓ 2. Proceeding from known to unknown for building new knowledge effectively.

✗ 3. Accommodating individual differences in abilities and learning paces.

✗ 4. Establishing correlations between subjects for integrated understanding.

Question ID : **4410091637351**
Option 1 ID : **4410096466943**
Option 2 ID : **4410096466942**
Option 3 ID : **4410096466944**
Option 4 ID : **4410096466945**

Q.7 **A researcher is comparing the influence of family and student councils on learners' values. Which distinction between social groups is most relevant for understanding the nature of these influences?**

Ans

✗ 1. Statics and dynamics

✗ 2. Formal and informal sanctions

✓ 3. Primary and secondary groups

✗ 4. Role and status

Question ID : **4410091613179**
Option 1 ID : **4410096371553**
Option 2 ID : **4410096371552**
Option 3 ID : **4410096371551**
Option 4 ID : **4410096371550**

Q.8 **An educator designs a lesson plan that emphasizes equitable participation, considers students' varied learning needs, and adapts resources for all learners. Which aim of pedagogy across the curriculum is best represented here?**

Ans

✗ 1. Focusing solely on content delivery

✗ 2. Encouraging individual competition

✓ 3. Promoting equity and inclusive instruction

✗ 4. Prioritizing uniform teaching methods

Question ID : **4410091606256**
Option 1 ID : **4410096344049**
Option 2 ID : **4410096344050**
Option 3 ID : **4410096344048**
Option 4 ID : **4410096344051**

QuickSarkari.com | WhatsApp Channel | Telegram: t.me/quick_sarkari

Q.9 **What should a graduate student prioritize when journal writing for self-understanding?**

Ans

✗ 1. Focusing on others' issues

✗ 2. Creating fictional stories

✓ 3. Honest expression of thoughts

✗ 4. Writing for entertainment

Question ID : **4410091607838**
Option 1 ID : **4410096350302**
Option 2 ID : **4410096350303**
Option 3 ID : **4410096350300**
Option 4 ID : **4410096350301**

Q.10 **A curriculum designer is creating early literacy materials for a linguistically diverse district. Which approach best supports inclusive education and national integration according to the scope of multilingualism?**

Ans

✓ 1. Developing resources in multiple home and school languages

✗ 2. Designing resources only in the regional official language

✗ 3. Focusing solely on English for global competitiveness

✗ 4. Using only visual aids to avoid language issues

Question ID : **4410091683447**
Option 1 ID : **4410096640715**
Option 2 ID : **4410096640714**
Option 3 ID : **4410096640716**
Option 4 ID : **4410096640717**

Q.11 **Which classroom practice best utilizes literature to enhance both comprehension and communication skills among early learners?**

Ans

✗ 1. Asking students to copy passages

✗ 2. Assigning only factual questions

✓ 3. Engaging students in group discussions about stories

✗ 4. Having students silently read without interaction

Question ID : **4410091608533**
Option 1 ID : **4410096353045**
Option 2 ID : **4410096353047**
Option 3 ID : **4410096353044**
Option 4 ID : **4410096353046**

QuickSarkari.com | WhatsApp Channel | Telegram: t.me/quick_sarkari

Q.12 Which of the following best captures the overall essence of what language is?

Ans

✔ 1. A structured system used for communication and cultural interaction.

✘ 2. A purely instinctive system of sounds used by humans and animals alike.

✘ 3. A set of rigid rules that determine how all humans must communicate.

✘ 4. A fixed collection of words whose meanings do not change over time.

Question ID : **4410091576586**
Option 1 ID : **4410096227157**
Option 2 ID : **4410096227156**
Option 3 ID : **4410096227155**
Option 4 ID : **4410096227158**

Q.13 Which statement most accurately reflects the scope of multilingualism in early literacy development?

Ans

✘ 1. Multilingualism is limited to classroom interactions with foreign languages.

✘ 2. Multilingualism refers only to the use of regional dialects at home.

✔ 3. Multilingualism is the ability to use and understand more than one language.

✘ 4. Multilingualism involves learning new vocabulary in one language only.

Question ID : **4410091631456**
Option 1 ID : **4410096444042**
Option 2 ID : **4410096444041**
Option 3 ID : **4410096444040**
Option 4 ID : **4410096444043**

Q.14 Which scenario best illustrates an issue about multilingualism in families?

Ans

✔ 1. Grandchildren and grandparents not understanding each other due to speaking different languages

✘ 2. Parents teaching only one language at home

✘ 3. Siblings learning the same new language at school

✘ 4. All family members speaking the same language fluently

Question ID : **4410091612012**
Option 1 ID : **4410096366872**
Option 2 ID : **4410096366874**
Option 3 ID : **4410096366873**
Option 4 ID : **4410096366871**

Q.15 Experiential learning is closely aligned with _____.

Ans

✘ 1. Purely transmission-based instruction

✘ 2. Rote-based drill learning

✔ 3. Constructivist learning theory

✘ 4. Strict behaviourist conditioning

Question ID : **4410091578541**
Option 1 ID : **4410096235249**
Option 2 ID : **4410096235251**
Option 3 ID : **4410096235250**
Option 4 ID : **4410096235248**

QuickSarkari.com | WhatsApp Channel | Telegram: t.me/quick_sarkari

Q.16 **How does a reflective journal help students grow over time?**

Ans

✗ 1. By memorizing facts and textbook content

✓ 2. By promoting personal growth and perspective change

✗ 3. By completing homework more quickly daily

✗ 4. By repeating lessons without personal analysis

Question ID : **4410091610494**
Option 1 ID : **4410096360860**
Option 2 ID : **4410096360859**
Option 3 ID : **4410096360861**
Option 4 ID : **4410096360862**

Q.17 **During a group exercise, members begin to divide tasks based on their strengths, but disagreements about role assignments occasionally disrupt progress. What is the most likely pattern of behavior being exhibited by this group?**

Ans

✓ 1. Role negotiation leading to temporary conflict

✗ 2. Members refusing all assigned roles

✗ 3. Complete harmony and agreement at all times

✗ 4. Static roles with no negotiation

Question ID : **4410091622787**
Option 1 ID : **4410096409920**
Option 2 ID : **4410096409923**
Option 3 ID : **4410096409922**
Option 4 ID : **4410096409921**

Q.18 **How can literature foster creativity in language learning?**

Ans

✗ 1. By focusing on memorizing factual information.

✗ 2. By having students repeat sentences.

✓ 3. By inspiring students to write their own stories.

✗ 4. By correcting students' grammar mistakes.

Question ID : **4410091694769**
Option 1 ID : **4410096685151**
Option 2 ID : **4410096685150**
Option 3 ID : **4410096685149**
Option 4 ID : **4410096685152**

QuickSarkari.com | WhatsApp Channel | Telegram: t.me/quick_sarkari

Q.19 **When students discuss an experiment in pairs and share their findings with the class, what classroom function of language is being demonstrated?**

Ans

✗ 1. Only a way to memorize content

✓ 2. A tool for communication and sharing ideas

✗ 3. A method to avoid interaction

✗ 4. A tool for silent reading only

Question ID : **4410091547773**
Option 1 ID : **4410096113932**
Option 2 ID : **4410096113931**
Option 3 ID : **4410096113933**
Option 4 ID : **4410096113934**

Q.20 **A teacher encourages students to mediate peer conflicts using consensus-building exercises inspired by Gandhian values. What principle of peace education is most evident in this instructional approach?**

Ans

✓ 1. Fostering conflict resolution and consensus

✗ 2. Promoting rote memorization

✗ 3. Reinforcing hierarchical classroom norms

✗ 4. Prioritizing individual achievement

Question ID : **4410091683136**
Option 1 ID : **4410096639638**
Option 2 ID : **4410096639639**
Option 3 ID : **4410096639641**
Option 4 ID : **4410096639640**

Section : **Discipline3**

Q.1 **A teacher ensures fair treatment and equal participation opportunities for all students. This action reflects which professional principle?**

Ans

✗ 1. Classroom authority in managing student behavior

✓ 2. Ethical responsibility toward students and fairness

✗ 3. Strict adherence to syllabus completion timelines

✗ 4. Emphasis on exam results and academic ranking

Question ID : **4410091695713**
Option 1 ID : **4410096688849**
Option 2 ID : **4410096688850**
Option 3 ID : **4410096688851**
Option 4 ID : **4410096688852**

QuickSarkari.com | WhatsApp Channel | Telegram: t.me/quick_sarkari

Q.2 **What is a common role of an NGO in supporting schools?**

Ans

✗ 1. Organizing parent-teacher meetings

✗ 2. Managing school discipline

✗ 3. Setting the school curriculum

✓ 4. Providing educational resources and support

Question ID : **4410091619514**
Option 1 ID : **4410096396913**
Option 2 ID : **4410096396914**
Option 3 ID : **4410096396915**
Option 4 ID : **4410096396912**

Q.3 **In Vaillant's hierarchy of defenses, which classroom behavior best exemplifies a mature defense that enhances learning while managing anxiety about performance?**

Ans

✗ 1. A student who procrastinates before an exam and blames the teacher's "trick questions" after scoring poorly

✓ 2. A student who channels pre-exam anxiety into organizing a peer review session and reworking practice problems

✗ 3. A student who avoids presentations by frequently calling in sick on speaking days

✗ 4. A student who insists the grading rubric is unfair and argues for points without reviewing the feedback

Question ID : **4410091563125**
Option 1 ID : **4410096174066**
Option 2 ID : **4410096174065**
Option 3 ID : **4410096174063**
Option 4 ID : **4410096174064**

Q.4 **What is the primary effect of television advertising on children?**

Ans

✗ 1. Improves academic performance

✗ 2. Encourages outdoor play

✓ 3. Influences buying behavior

✗ 4. Reduces creativity

Question ID : **4410091631408**
Option 1 ID : **4410096443849**
Option 2 ID : **4410096443851**
Option 3 ID : **4410096443848**
Option 4 ID : **4410096443850**

QuickSarkari

Q.5 During the preoperational stage, what is a common limitation in a child's thinking?

Ans
- ✗ 1. Logical reasoning
- ✓ 2. Egocentrism
- ✗ 3. Problem solving
- ✗ 4. Multiple reasoning

Question ID : **4410091682322**
Option 1 ID : **4410096636562**
Option 2 ID : **4410096636564**
Option 3 ID : **4410096636565**
Option 4 ID : **4410096636563**

Q.6 Which of the following sentences is grammatically correct?

Ans
- ✗ 1. She do not like to attend meetings regularly.
- ✓ 2. She does not like to attend meetings regularly.
- ✗ 3. She does not likes to attend meetings regularly.
- ✗ 4. She did not likes to attend meetings regularly.

Question ID : **4410091610682**
Option 1 ID : **4410096361607**
Option 2 ID : **4410096361608**
Option 3 ID : **4410096361610**
Option 4 ID : **4410096361609**

Q.7 Which concept explains the preference for sons in some Indian communities?

Ans
- ✗ 1. Economic modernization
- ✗ 2. Gender neutrality
- ✓ 3. Patriarchy
- ✗ 4. Matrilineal descent

Question ID : **4410091580922**
Option 1 ID : **4410096245045**
Option 2 ID : **4410096245044**
Option 3 ID : **4410096245043**
Option 4 ID : **4410096245042**

Q.8 Which of the following is not a characteristic of an educator?

Ans
- ✗ 1. Involves a teaching profession
- ✗ 2. Performs a social service
- ✓ 3. Low degree of autonomy
- ✗ 4. Common code of conduct

Question ID : **4410091546958**
Option 1 ID : **4410096110701**
Option 2 ID : **4410096110700**
Option 3 ID : **4410096110702**
Option 4 ID : **4410096110703**

Quick Sarkari

Q.9 **A teacher who notices a student's unspoken anxiety and responds appropriately is showing:**

Ans

✗ 1. Competitiveness

✗ 2. Creativity

✓ 3. Empathy

✗ 4. Discipline

Question ID : **4410091572423**
Option 1 ID : **4410096210645**
Option 2 ID : **4410096210644**
Option 3 ID : **4410096210647**
Option 4 ID : **4410096210646**

Q.10 **From the perspective of grammatical correctness, subject–verb agreement requires that:**

Ans

✓ 1. The verb matches the subject in number

✗ 2. The verb adapts to the discourse context

✗ 3. The verb reflects the speaker's intention

✗ 4. The verb aligns with pragmatic meaning

Question ID : **4410091580768**
Option 1 ID : **4410096244404**
Option 2 ID : **4410096244403**
Option 3 ID : **4410096244402**
Option 4 ID : **4410096244405**

Q.11 **During a classroom observation, a teacher notes that children aged 3-4 are playing side-by-side with clay, occasionally exchanging tools and commenting on each other's work, but without a unified goal. What type of social play best describes their interaction?**

Ans

✗ 1. Parallel play with minimal interaction

✗ 2. Solitary play with independent focus

✓ 3. Associative play with shared materials

✗ 4. Cooperative play with assigned roles

Question ID : **4410091615706**
Option 1 ID : **4410096381748**
Option 2 ID : **4410096381745**
Option 3 ID : **4410096381746**
Option 4 ID : **4410096381747**

QuickSarkari.com | WhatsApp Channel | Telegram: t.me/quick_sarkari

Q.12 **Which of the following assessment tasks would best evaluate students' ability to apply the concept of area in a real-life context?**

Ans

✗ 1. Reciting the formula for area of a rectangle from memory

✓ 2. Designing a plan to cover a classroom floor with carpet tiles

✗ 3. Listing different units used for measuring area

✗ 4. Copying a diagram of a square onto grid paper

Question ID : **4410091641691**
Option 1 ID : **4410096483844**
Option 2 ID : **4410096483843**
Option 3 ID : **4410096483846**
Option 4 ID : **4410096483845**

Q.13 **Children cover a sheet of paper with different leaves and count them. Which mathematical ideas are best connected through this activity?**

Ans

✓ 1. Measurement and data handling

✗ 2. Seriation and conservation

✗ 3. Volume and proportionality

✗ 4. Estimation and circumference

Question ID : **4410091558700**
Option 1 ID : **4410096157190**
Option 2 ID : **4410096157192**
Option 3 ID : **4410096157193**
Option 4 ID : **4410096157191**

Q.14 **Children pretend to run a shop during free play. This is an example of:**

Ans

✗ 1. Solitary play

✗ 2. Constructive play

✓ 3. Symbolic/pretend play

✗ 4. Physical play

Question ID : **4410091568381**
Option 1 ID : **4410096194808**
Option 2 ID : **4410096194809**
Option 3 ID : **4410096194810**
Option 4 ID : **4410096194811**

Q.15 **A student shares a personal problem that affects learning. What should a teacher do to act as a facilitator while staying professional?**

Ans

✗ 1. Solve every part of the student's personal problem

✗ 2. Ignore the concern and focus only on schoolwork

✗ 3. Tell the class to help solve the student's problem

✓ 4. Listen kindly and guide the student to proper help

Question ID : **4410091603931**
Option 1 ID : **4410096334913**
Option 2 ID : **4410096334914**
Option 3 ID : **4410096334915**
Option 4 ID : **4410096334912**

QuickSarkari.com | WhatsApp Channel | Telegram: t.me/quick_sarkari

Q.16 **A school invites parents to participate in decision-making about student welfare and school activities through regular meetings. This practice best reflects the role of which of the following?**

Ans

✗ 1. Inspection committees

✓ 2. Parent Teacher Association

✗ 3. Examination boards

✗ 4. Private coaching agencies

Question ID : **4410091685525**
Option 1 ID : **4410096648994**
Option 2 ID : **4410096648995**
Option 3 ID : **4410096648997**
Option 4 ID : **4410096648996**

Q.17 **Which sentence correctly uses subject–verb agreement?**

Ans

✗ 1. The team is play very well in the match.

✓ 2. The team plays very well in the match.

✗ 3. The team play very well in the match.

✗ 4. The team playing very well in the match.

Question ID : **4410091548280**
Option 1 ID : **4410096115836**
Option 2 ID : **4410096115834**
Option 3 ID : **4410096115833**
Option 4 ID : **4410096115835**

Q.18 **A media studies class is asked to compare commercial ads for junk food with social advertisements about child rights. Which key difference should students focus on to understand their broader societal impact?**

Ans

✗ 1. Social ads are usually longer in duration

✓ 2. Commercial ads favor wealth, social ads promote equity

✗ 3. Junk food ads are banned in urban areas

✗ 4. Social ads use more celebrities than commercial ads

Question ID : **4410091616435**
Option 1 ID : **4410096384665**
Option 2 ID : **4410096384662**
Option 3 ID : **4410096384664**
Option 4 ID : **4410096384663**

QuickSarkari.com | WhatsApp Channel | Telegram: t.me/quick_sarkari

Q.19 **A teacher asks students to estimate the number of books needed to cover a desktop, then verifies it by laying the books down. This activity primarily aids the child in developing the foundational idea of:**

Ans

✗ 1. Standardized capacity

✓ 2. Tiling unit area

✗ 3. Volume comparison

✗ 4. Linear comparison

Question ID : **4410091558411**
Option 1 ID : **4410096156048**
Option 2 ID : **4410096156046**
Option 3 ID : **4410096156045**
Option 4 ID : **4410096156047**

Q.20 **How does mastering English language skills benefit someone aiming for a global career?**

Ans

✗ 1. It focuses only on local markets

✓ 2. It enables effective communication and access to international opportunities

✗ 3. It replaces the need for technical skills

✗ 4. It guarantees immediate promotion in all jobs

Question ID : **4410091612193**
Option 1 ID : **4410096367618**
Option 2 ID : **4410096367615**
Option 3 ID : **4410096367617**
Option 4 ID : **4410096367616**

Section : **Discipline4**

Q.1 **A teacher asks students to design a model of a simple water purification system using discarded plastic bottles and sand. Which principle does this activity exemplify?**

Ans

✗ 1. Demonstrating established scientific facts in classrooms

✓ 2. Application of scientific concepts using low cost materials

✗ 3. Demonstrating laboratory experiments only with expensive kits

✗ 4. Implementing discovery-oriented tasks as field-work

Question ID : **4410091646412**
Option 1 ID : **4410096501888**
Option 2 ID : **4410096501886**
Option 3 ID : **4410096501887**
Option 4 ID : **4410096501889**

Q.2 **How does education help vulnerable populations?**

Ans

✗ 1. By increasing competition among individuals

✗ 2. By promoting physical activities only

✓ 3. By reducing poverty and creating better perspectives

✗ 4. By eliminating all social conflicts

Question ID : **4410091605098**
Option 1 ID : **4410096339555**
Option 2 ID : **4410096339557**
Option 3 ID : **4410096339554**
Option 4 ID : **4410096339556**

Q.3 **A teacher asks students, "How can we reduce waste in our school?" and accepts multiple reasonable answers. This question is an example of which of the following?**

Ans

✗ 1. Drill-based assessment

✗ 2. Objective-type testing

✓ 3. Open-ended evaluation

✗ 4. Memorisation testing

Question ID : **4410091690406**
Option 1 ID : **4410096667823**
Option 2 ID : **4410096667821**
Option 3 ID : **4410096667822**
Option 4 ID : **4410096667824**

Q.4 **Which ICT tool best supports collaborative story writing in a primary English class?**

Ans

✗ 1. Interactive whiteboard

✗

✓ 3. Google Docs

✗ 4. YouTube

Question ID : **4410091635493**
Option 1 ID : **4410096459993**
Option 2 ID : **4410096459992**
Option 3 ID : **4410096459991**
Option 4 ID : **4410096459994**

QuickSarkari.com | WhatsApp Channel | Telegram: t.me/quick_sarkari

Q.5 **A principal wants to improve student engagement and achievement by applying pedagogical leadership. Which action aligns best with this goal?**

Ans

✗ 1. Emphasizing strict discipline

✓ 2. Promoting reflective teaching

✗ 3. Using fixed lesson plans

✗ 4. Increasing teacher oversight

Question ID : **4410091623872**
Option 1 ID : **4410096414070**
Option 2 ID : **4410096414069**
Option 3 ID : **4410096414071**
Option 4 ID : **4410096414068**

Q.6 **When evaluating the effectiveness of low cost-no cost teaching-learning materials in environmental studies, which criterion is most important to ensure meaningful learning outcomes for diverse learners?**

Ans

✗ 1. The materials are used only by teachers for classroom demonstration

✗ 2. The materials are sourced exclusively from outside the community

✓ 3. The materials adapt to learner needs and encourage active participation

✗ 4. The materials are aesthetically pleasing and visually attractive

Question ID : **4410091681827**
Option 1 ID : **4410096634681**
Option 2 ID : **4410096634680**
Option 3 ID : **4410096634679**
Option 4 ID : **4410096634678**

Q.7 **Which process is developed in children through interaction with the environment?**

Ans

✓ 1. Observation, recording, classification, communication

✗ 2. Sitting silently without exploring

✗ 3. Ignoring natural surroundings and objects

✗ 4. Copying and memorizing from the board

Question ID : **4410091572453**
Option 1 ID : **4410096210748**
Option 2 ID : **4410096210750**
Option 3 ID : **4410096210751**
Option 4 ID : **4410096210749**

QuickSarkari.com | WhatsApp Channel | Telegram: t.me/quick_sarkari

Q.8 **What is a demerit of the GMT method?**

Ans

✗ 1. It requires advanced technology.

✓ 2. It restricts speaking and listening skills.

✗ 3. It is not suitable for large classes.

✗ 4. It is expensive to implement.

Question ID : **4410091608477**
Option 1 ID : **4410096352822**
Option 2 ID : **4410096352821**
Option 3 ID : **4410096352823**
Option 4 ID : **4410096352820**

Q.9 **The functional approach to Instructional Leadership explicitly includes defining which institutional component?**

Ans

✗ 1. Staffing reorganization

✗ 2. Annual procurement plan

✗ 3. External partnership goals

✓ 4. Clear school mission

Question ID : **4410091558788**
Option 1 ID : **4410096157539**
Option 2 ID : **4410096157537**
Option 3 ID : **4410096157540**
Option 4 ID : **4410096157538**

Q.10 **Quality textbooks facilitate effective learning by integrating what essential pedagogical feature?**

Ans

✗ 1. Uniform presentation ignoring curriculum alignment

✓ 2. Resource ideas with instructional activities rationale

✗ 3. Static content without teaching strategy links

✗ 4. Assessment tools excluding formative practice

Question ID : **4410091564503**
Option 1 ID : **4410096179591**
Option 2 ID : **4410096179589**
Option 3 ID : **4410096179590**
Option 4 ID : **4410096179592**

Q.11 **When assessing a student's writing, which of the following aspects is MOST important?**

Ans

✗ 1. The type of pen used

✓ 2. Grammar, creativity, and clarity of ideas

✗ 3. Only the length of the writing

✗ 4. Copying from textbooks

Question ID : **4410091553481**
Option 1 ID : **4410096136597**
Option 2 ID : **4410096136596**
Option 3 ID : **4410096136595**
Option 4 ID : **4410096136598**

QuickSarkari.com | WhatsApp Channel | Telegram: t.me/quick_sarkari

Q.12 **In the context of lesson planning, which step involves checking students' prior knowledge before introducing new content?**

Ans

✗ 1. Evaluation

✓ 2. Preparation

✗ 3. Presentation

✗ 4. Practice

Question ID : **4410091638427**
Option 1 ID : **4410096471425**
Option 2 ID : **4410096471422**
Option 3 ID : **4410096471423**
Option 4 ID : **4410096471424**

Q.13 **The scope of social science is described as vast because:**

Ans

✗ 1. It avoids analysis of facts and figures

✗ 2. It focuses mainly on mathematical data

✓ 3. It includes multiple disciplines and social situations

✗ 4. It deals only with ancient civilizations

Question ID : **4410091572475**
Option 1 ID : **4410096210831**
Option 2 ID : **4410096210830**
Option 3 ID : **4410096210829**
Option 4 ID : **4410096210828**

Q.14 **Which statement best captures the relationship between equality and justice?**

Ans

✗ 1. Equality replaces the need for justice in society

✓ 2. Justice gives meaning to equality by ensuring fairness in practice

✗ 3. Justice requires treating everyone exactly the same

✗ 4. Equality and justice are unrelated concepts in democratic systems

Question ID : **4410091603091**
Option 1 ID : **4410096331563**
Option 2 ID : **4410096331560**
Option 3 ID : **4410096331562**
Option 4 ID : **4410096331561**

Q.15 **Which of the following is a major theme in the EVS curriculum at the primary level?**

Ans

✗ 1. Basics of quantum physics concepts

✗ 2. Ideas from advanced calculus study

✗ 3. Rules guiding international trade

✓ 4. Topics on families, nature, and health

Question ID : **4410091552862**
Option 1 ID : **4410096133840**
Option 2 ID : **4410096133842**
Option 3 ID : **4410096133843**
Option 4 ID : **4410096133841**

QuickSarkari.com | WhatsApp Channel | Telegram: t.me/quick_sarkari

Q.16 **Which primary skill does the Grammar Translation Method focus on developing?**

Ans

✗ 1. Listening practice

✗ 2. Interactive speaking

✓ 3. Reading comprehension

✗ 4. Oral communication

Question ID : **4410091637837**
Option 1 ID : **4410096468912**
Option 2 ID : **4410096468913**
Option 3 ID : **4410096468910**
Option 4 ID : **4410096468911**

Q.17 **Which languages were primarily taught using the Grammar Translation method during its early years?**

Ans

✗ 1. French and Spanish

✗ 2. Chinese and Japanese

✓ 3. Greek and Latin

✗ 4. English and German

Question ID : **4410091636361**
Option 1 ID : **4410096463350**
Option 2 ID : **4410096463352**
Option 3 ID : **4410096463349**
Option 4 ID : **4410096463351**

Q.18 **A central problem of globalization in education is that it can:**

Ans

✗ 1. Reduce the need for technology skills in learning

✗ 2. Give equal learning opportunities to everyone

✓ 3. Make cultures look similar and increase digital inequality

✗ 4. Strengthen local culture without any outside effect

Question ID : **4410091548536**
Option 1 ID : **4410096116842**
Option 2 ID : **4410096116840**
Option 3 ID : **4410096116841**
Option 4 ID : **4410096116843**

QuickSarkari.com | WhatsApp Channel | Telegram: t.me/quick_sarkari

Q.19 **A school leader aiming to drive effective change in teaching and learning should primarily focus on which approach?**

Ans

✗ 1. Implementing changes without staff consultation

✗ 2. Relying only on external experts for advice

✗ 3. Mandating uniform teaching methods across all subjects

✓ 4. Shared instructional decision-making with teachers

Question ID : **4410091611121**
Option 1 ID : **4410096363340**
Option 2 ID : **4410096363341**
Option 3 ID : **4410096363342**
Option 4 ID : **4410096363339**

Q.20 **A teacher is designing homework based on textbook exercises for an optional pedagogic course. To promote transfer of learning, what should she ensure?**

Ans

✓ 1. She links homework tasks to real-life situations, such as family journals.

✗ 2. She repeats classroom exercises as homework without variation.

✗ 3. She limits homework to textbook reading only.

✗ 4. She assigns only textbook questions without context.

Question ID : **4410091609048**
Option 1 ID : **4410096355108**
Option 2 ID : **4410096355110**
Option 3 ID : **4410096355111**
Option 4 ID : **4410096355109**

Section : **Discipline5**

Q.1 **A teacher designs tasks that develop thinking, emotional understanding, and hand–eye coordination. This demonstrates:**

Ans

✗ 1. Organizational skills training

✓ 2. Bloom's three learning domains

✗ 3. Aesthetic appreciation activities

✗ 4. A focus on memorization

Question ID : **4410091570207**
Option 1 ID : **4410096201824**
Option 2 ID : **4410096201822**
Option 3 ID : **4410096201823**
Option 4 ID : **4410096201821**

QuickSarkari.com | WhatsApp Channel | Telegram: t.me/quick_sarkari

Q.2 **A student receives individualised pull-out sessions, uses manipulatives like an abacus, and is provided with extra time for tasks. Which combination of needs is most likely being addressed?**

Ans

✗ 1. Dysgraphia and peer support

✗ 2. Dyslexia and large print texts

✗ 3. Auditory processing and speech therapy

✓ 4. Dyscalculia and classroom adaptation

Question ID : **4410091612000**
Option 1 ID : **4410096366823**
Option 2 ID : **4410096366826**
Option 3 ID : **4410096366825**
Option 4 ID : **4410096366824**

Q.3 **A school aims to promote a more gender-inclusive learning environment. Which initiative would be most effective?**

Ans

✗ 1. Addressing inclusion only during special awareness events

✗ 2. Maintaining traditional gender roles in school activities

✗ 3. Highlighting achievement examples from one gender group

✓ 4. Reviewing learning materials to eliminate gender stereotypes

Question ID : **4410091618970**
Option 1 ID : **4410096394755**
Option 2 ID : **4410096394753**
Option 3 ID : **4410096394754**
Option 4 ID : **4410096394752**

Q.4 **Children from marginalized families face classroom neglect despite strong performance primarily due to which combined factors?**

Ans

✓ 1. Teacher prejudice and peer insensitivity to diversity contexts

✗ 2. Advanced digital resources and integration of technology excluding rural participants only

✗ 3. The provisions of RTE Act systematically denies access to education

✗ 4. Uniform curriculum and syllabus design ignoring socioeconomic gradients

Question ID : **4410091564682**
Option 1 ID : **4410096180305**
Option 2 ID : **4410096180306**
Option 3 ID : **4410096180304**
Option 4 ID : **4410096180307**

QuickSarkari.com | WhatsApp Channel | Telegram: t.me/quick_sarkari

Q.5 **Charts, maps and diagrams belong to which category of teaching aids?**

Ans

✗ 1. Audio-visual aids

✓ 2. Visual aids

✗ 3. Audio aids

✗ 4. Activity aids

Question ID : **4410091572485**
Option 1 ID : **4410096210869**
Option 2 ID : **4410096210871**
Option 3 ID : **4410096210868**
Option 4 ID : **4410096210870**

Q.6 **A teacher asks students to explain the difference between formative and summative assessment. This question mainly evaluates which cognitive skill level according to Bloom's taxonomy?**

Ans

✓ 1. Understanding

✗ 2. Creating

✗ 3. Remembering

✗ 4. Applying

Question ID : **4410091669664**
Option 1 ID : **4410096589541**
Option 2 ID : **4410096589543**
Option 3 ID : **4410096589540**
Option 4 ID : **4410096589542**

Q.7 **How can a teacher make classroom materials more inclusive for students from different backgrounds?**

Ans

✗ 1. Using only prescribed English textbooks

✗ 2. Choosing content from a state curriculum

✓ 3. Incorporating examples from various cultures

✗ 4. Avoiding the use of local examples in classroom

Question ID : **4410091670630**
Option 1 ID : **4410096593280**
Option 2 ID : **4410096593281**
Option 3 ID : **4410096593283**
Option 4 ID : **4410096593282**

Q.8 **How can textbooks influence gender socialisation?**

Ans

✓ 1. By portraying traditional or diverse gender roles

✗ 2. By mandating extracurricular participation for students

✗ 3. By controlling teacher behaviours in classrooms

✗ 4. By assigning grades based on gender differences

Question ID : **4410091572503**
Option 1 ID : **4410096210943**
Option 2 ID : **4410096210940**
Option 3 ID : **4410096210941**
Option 4 ID : **4410096210942**

QuickSarkari.com | WhatsApp Channel | Telegram: t.me/quick_sarkari

Q.9 **When teachers discourage boys from expressing emotions while permitting girls to do so, this pattern of interaction reinforces:**

Ans

✗ 1. Independent academic functioning

✗ 2. Gender-neutral classroom behaviour

✓ 3. Traditional gender norms

✗ 4. Positive emotional growth

Question ID : **4410091550587**
Option 1 ID : **4410096124810**
Option 2 ID : **4410096124809**
Option 3 ID : **4410096124808**
Option 4 ID : **4410096124807**

Q.10 **Mathematics is most precisely defined as the science of which of the following?**

Ans

✗ 1. History and culture

✗ 2. Art and music

✓ 3. Quantity, measurement, and spatial relations

✗ 4. Language and literature

Question ID : **4410091609455**
Option 1 ID : **4410096356737**
Option 2 ID : **4410096356739**
Option 3 ID : **4410096356736**
Option 4 ID : **4410096356738**

Q.11 **Excluding rotations and reflections, how many distinct magic squares exist for order 3 using 1 through 9?**

Ans

✗ 1. 275305224 total variants

✗ 2. Infinite solutions via scaling factors

✗ 3. 880 fundamental arrangements

✓ 4. Exactly one unique configuration

Question ID : **4410091564660**
Option 1 ID : **4410096180218**
Option 2 ID : **4410096180219**
Option 3 ID : **4410096180216**
Option 4 ID : **4410096180217**

Q.12 **Science education is best described as a process of:**

Ans

✗ 1. Passive reception of information provided by teachers and textbooks

✗ 2. Accumulation of factual knowledge without conceptual understanding

✓ 3. Inquiry-based learning that links theory with real-life applications

✗ 4. Training students exclusively for competitive scientific examinations

Question ID : **4410091603419**
Option 1 ID : **4410096332873**
Option 2 ID : **4410096332874**
Option 3 ID : **4410096332872**
Option 4 ID : **4410096332875**

QuickSarkari.com | WhatsApp Channel | Telegram: t.me/quick_sarkari

Q.13 **Which feature of the secondary science kit most directly supports the performance of laboratory experiments prescribed by CBSE for Classes IX and X?**

Ans

✗ 1. Provision of teacher training modules within the kit

✓ 2. Inclusion of scientific apparatus matching CBSE curriculum

✗ 3. Addition of historical background of scientific concepts

✗ 4. Distribution of theoretical workbooks for students

Question ID : **4410091662867**
Option 1 ID : **4410096564774**
Option 2 ID : **4410096564773**
Option 3 ID : **4410096564776**
Option 4 ID : **4410096564775**

Q.14 **Which of the following is an important step schools can take to promote gender equality?**

Ans

✗ 1. Separating boys and girls in all activities

✓ 2. Ensuring equal opportunities for all genders

✗ 3. Focusing activities only on girls

✗ 4. Ignoring gender issues in school programs

Question ID : **4410091628040**
Option 1 ID : **4410096430341**
Option 2 ID : **4410096430338**
Option 3 ID : **4410096430339**
Option 4 ID : **4410096430340**

Q.15 **Which of the following is an example of a visual teaching aid in language teaching?**

Ans

✓ 1. Flashcards showing words and pictures

✗ 2. Teacher giving oral instructions to the class

✗ 3. Teacher conducting group discussion in class

✗ 4. Students reading silently from textbooks

Question ID : **4410091551046**
Option 1 ID : **4410096126430**
Option 2 ID : **4410096126429**
Option 3 ID : **4410096126427**
Option 4 ID : **4410096126428**

QuickSarkari.com | WhatsApp Channel | Telegram: t.me/quick_sarkari

Q.16 Why is a science kit considered important in school science teaching?

Ans

✗ 1. It reduces the time spent on classroom teaching activities

✓ 2. It helps students perform experiments and learn science concepts

✗ 3. It replaces textbooks as the main source of science knowledge

✗ 4. It is mainly used for decoration in school science laboratories

Question ID : **4410091551118**
Option 1 ID : **4410096126713**
Option 2 ID : **4410096126714**
Option 3 ID : **4410096126712**
Option 4 ID : **4410096126711**

Q.17 A school Eco-Club organizes a trip to a nearby water treatment facility. Which primary non-cognitive goal is best achieved by this application activity?

Ans

✓ 1. Appreciating society linkages

✗ 2. Promoting cooperative skills

✗ 3. Verifying conceptual theories

✗ 4. Developing precise inquiry

Question ID : **4410091551603**
Option 1 ID : **4410096129049**
Option 2 ID : **4410096129048**
Option 3 ID : **4410096129047**
Option 4 ID : **4410096129050**

Q.18 Which example best illustrates the use of recreational mathematics to promote the joy of learning?

Ans

✗ 1. Focusing only on textbook exercises every day

✗ 2. Limiting lessons to lecture-based explanations

✓ 3. Solving puzzles and playing math games in class

✗ 4. Assigning repetitive drills with no variation

Question ID : **4410091641198**
Option 1 ID : **4410096481947**
Option 2 ID : **4410096481948**
Option 3 ID : **4410096481945**
Option 4 ID : **4410096481946**

Q.19 Why is recreational mathematics important in learning mathematics?

Ans

✗ 1. It helps students avoid common mistakes.

✓ 2. It develops problem-solving skills in a fun way.

✗ 3. It focuses only on memorizing formulas.

✗ 4. It teaches only routine calculations.

Question ID : **4410091687913**
Option 1 ID : **4410096658441**
Option 2 ID : **4410096658438**
Option 3 ID : **4410096658439**
Option 4 ID : **4410096658440**

QuickSarkari.com | WhatsApp Channel | Telegram: t.me/quick_sarkari

Q.20 **What is a key benefit of addressing diversity and inequality in Indian classrooms?**

Ans

✗ 1. It encourages competition between students

✗ 2. It limits cultural exchange

✗ 3. It maintains traditional classroom structures

✓ 4. It promotes equal participation among all students

Question ID : **4410091628064**
Option 1 ID : **4410096430434**
Option 2 ID : **4410096430437**
Option 3 ID : **4410096430435**
Option 4 ID : **4410096430436**

"

QuickSarkari

Quick Sarkari

Thank you for studying with QuickSarkari!

Get the latest Sarkari Naukri notifications, admit cards, results, answer keys and free previous-year papers first - follow us on WhatsApp and Telegram.

Visit www.quicksarkari.com

Join our WhatsApp Channel

https://whatsapp.com/channel/0029VaxxbrREquiPoXTWM229

Join our Telegram Channel

https://t.me/quick_sarkari

Share this PDF with your friends preparing for DSSSB exams.