DSSSB PREVIOUS YEAR PAPER WITH ANSWER KEY

DSSSB Assistant Teacher (Primary) – PRT

31 March 2026 · Shift 1

डीएसएसएसबी सहायक अध्यापक (प्राथमिक) – PRT – 31 मार्च 2026, शिफ्ट 1 का प्रश्न पत्र, उत्तर कुंजी सहित

200	120 min	1 / −0.25	EN + HI
Questions / प्रश्न	Duration / समय	Marks per Q / अंक	Language / भाषा

Sections: General Intelligence and Reasoning Ability, General Awareness, Arithmetical and Numerical Ability, English Language and Comprehension, Hindi Language and Comprehension, Assistant Teacher (Primary) – PRT

INSIDE THIS PDF / इस PDF में

Question Paper in English + Hindi with Answer Key (correct option marked in green) + answer table — Page 2–50
प्रश्न पत्र अंग्रेज़ी + हिंदी में, उत्तर कुंजी सहित (सही विकल्प हरे रंग में) + उत्तर तालिका

Official DSSSB Response Sheet with Answer Key (correct option ticked in green) — Page 51–120
आधिकारिक DSSSB रिस्पॉन्स शीट, उत्तर कुंजी सहित (सही विकल्प हरे टिक से)

HOW TO USE THIS PAPER / इस पेपर का उपयोग कैसे करें

1. Attempt the paper first as a timed online mock test (link below).
   पहले नीचे दिए लिंक से इसे टाइमर के साथ ऑनलाइन मॉक टेस्ट के रूप में हल करें।
2. Check your score, section-wise analysis and solutions online.
   ऑनलाइन अपना स्कोर, खंड-वार विश्लेषण और हल देखें।
3. Use this PDF for revision. Correct answers are shown in green.
   दोहराने के लिए इस PDF का उपयोग करें। सही उत्तर हरे रंग में दिए गए हैं।

Attempt this paper as a FREE online mock test

इस पेपर को फ्री ऑनलाइन मॉक टेस्ट के रूप में हल करें – टाइमर, स्कोर और हल के साथ

https://quicksarkari.com/dsssb-assistant-teacher-primary-31-march-2026-shift-1-mock-test/

All DSSSB Assistant Teacher (Primary) – PRT papers and mock tests: **quicksarkari.com/dsssb-mock-test/#assistant-teacher-primary**

Join WhatsApp Channel | Join Telegram Channel

DSSSB Assistant Teacher (Primary) – PRT – Question Paper (English + Hindi)

DSSSB सहायक अध्यापक (प्राथमिक) – PRT – प्रश्न पत्र (अंग्रेज़ी + हिंदी)

Exam held on 31 March 2026, Shift 1 · 200 questions · correct answers marked ✔ in green
परीक्षा तिथि 31 मार्च 2026, शिफ्ट 1 · 200 प्रश्न · सही उत्तर हरे रंग में ✔ से चिह्नित

> The official paper for this shift was in English. The Hindi version of each question is a translation prepared by QuickSarkari; the language-section questions are shown as asked.
> इस शिफ्ट का आधिकारिक प्रश्न पत्र अंग्रेज़ी में था। प्रत्येक प्रश्न का हिंदी संस्करण QuickSarkari द्वारा तैयार किया गया अनुवाद है; भाषा खंड के प्रश्न मूल रूप में दिए गए हैं।

General Intelligence and Reasoning Ability

Q.1 If the water source is placed along M-N, as shown in the figure, which of the given options will be the water reflection of the given figure?



यदि जल स्रोत को आकृति में दर्शाए अनुसार M-N के अनुदिश रखा जाता है, तो दिए गए विकल्पों में से कौन-सा विकल्प दी गई आकृति का जल प्रतिबिंब होगा?

(1) 

(2) 

(3) 

(4)  ✔

QuickSarkari.com | WhatsApp Channel | Telegram: t.me/quick_sarkari

Q.2 Refer to the following number, symbol series and answer the question.
Counting to be done from left to right only. (All numbers are single-digit numbers only).
(Left) 2 ^ 7 ? $ % < ? 4 3 \ & * @ # < 6 7 + 3 # (Right)
How many such numbers are there, each of which is immediately preceded by a symbol and also immediately followed by a symbol?

निम्नलिखित संख्या, प्रतीक श्रृंखला का संदर्भ लें और प्रश्न का उत्तर दें।
गिनती केवल बाएँ से दाएँ की जानी है। (सभी संख्याएँ केवल एक-अंकीय संख्याएँ हैं)।
(बाएँ) 2 ^ 7 ? $ % < ? 4 3 \ & * @ # < 6 7 + 3 # (दाएँ)
ऐसी कितनी संख्याएँ हैं, जिनमें से प्रत्येक के ठीक पहले एक प्रतीक है और ठीक बाद में भी एक प्रतीक है?

(1) One / एक
(2) **Two / दो ✔**
(3) None / कोई नहीं
(4) Three / तीन

Q.3 Refer to the following letter series and answer the question. (Counting to be done from left to right only).
(Left) Z M L Q B X K C H A W V N T R Y D F J P I A U K E O X Z (Right).
How many such vowels are there, each of which is immediately preceded by a vowel and immediately followed by a vowel?

निम्नलिखित अक्षर श्रृंखला का संदर्भ लें और प्रश्न का उत्तर दें। (गिनती केवल बाएँ से दाएँ की जानी है)।
(बाएँ) Z M L Q B X K C H A W V N T R Y D F J P I A U K E O X Z (दाएँ)।
ऐसे कितने स्वर हैं, जिनमें से प्रत्येक के ठीक पहले एक स्वर है और ठीक बाद में भी एक स्वर है?

(1) Three / तीन
(2) **One / एक ✔**
(3) Two / दो
(4) Four / चार

Q.4 Based on the English alphabetical order, three of the following four letter- cluster pairs are alike in a certain way and thus form a group. Which letter- cluster pair DOES NOT belong to that group?
(Note: The odd one out is not based on the number of consonants/vowels or their position in the letter-cluster.)

अंग्रेजी वर्णमाला क्रम के आधार पर, निम्नलिखित चार अक्षर-समूह युग्मों में से तीन किसी निश्चित प्रकार से एकसमान हैं और इस प्रकार एक समूह बनाते हैं। कौन-सा अक्षर-समूह युग्म उस समूह से संबंधित नहीं है?
(नोट: असंगत अक्षर-समूह, उस अक्षर-समूह में व्यंजनों/स्वरों की संख्या या उनके स्थान पर आधारित नहीं है।)

(1) **BK-FY ✔**
(2) NW-QK
(3) WF-ZT
(4) FO-IC

Q.5 What should come in place of the question mark (?) in the given series?
3, 11, 35, ?, 323, 971

दी गई श्रृंखला में प्रश्न चिह्न (?) के स्थान पर क्या आना चाहिए?
3, 11, 35, ?, 323, 971

(1) 108
(2) **107 ✔**
(3) 106
(4) 105

Q.6 Select the correct mirror image of the given figure when the mirror is placed at MN as shown below.

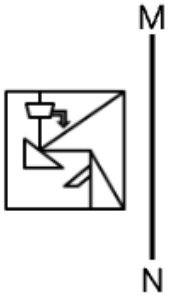

जब दर्पण को नीचे दर्शाए अनुसार MN पर रखा जाता है, तो दी गई आकृति के सही दर्पण प्रतिबिंब का चयन करें।

(1)  ✔

(2) 

(3) 

(4) 

Q.7 Each of H, U, S, B, A, N and D has an exam on a different day of the week starting from Monday and ending on Sunday of the same week. D has an exam on Thursday. B has an exam two days before D. Only four people have exams between S and B. A has an exam on one of the days after B. U has an exam on the day immediately before H. S has an exam after B. How many people have exams between H and A?

H, U, S, B, A, N और D में से प्रत्येक की परीक्षा सप्ताह के एक अलग दिन है, जो सोमवार से शुरू होकर उसी सप्ताह के रविवार को समाप्त होता है। D की परीक्षा गुरुवार को है। B की परीक्षा D से दो दिन पहले है। S और B के बीच केवल चार व्यक्तियों की परीक्षाएँ हैं। A की परीक्षा B के बाद के दिनों में से किसी एक दिन है। U की परीक्षा H से ठीक पहले वाले दिन है। S की परीक्षा B के बाद है। H और A के बीच कितने व्यक्तियों की परीक्षाएँ हैं?

(1) Two / दो ✔

(2) Three / तीन

(3) Four / चार

(4) One / एक

QuickSarkari.com | WhatsApp Channel | Telegram: t.me/quick_sarkari

Q.8 What will come in the place of '?' in the following equation, if '+' and '-' are interchanged and 'x' and '÷' are interchanged?
849 + 131 - 861 x 287 ÷ 836 x 209 + 74 =?
यदि '+' और '-' को आपस में बदल दिया जाए तथा 'x' और '÷' को आपस में बदल दिया जाए, तो निम्नलिखित समीकरण में '?' के स्थान पर क्या आएगा?
849 + 131 - 861 x 287 ÷ 836 x 209 + 74 =?

(1) 566
(2) 665
(3) 656 ✔
(4) 666

Q.9 E, F, G, H, K, L and N are sitting around a circular table facing the centre.
Only one person sits between H and L when counted from the left of L. K sits third to the right of G. N sits third to the left of E. K sits to the immediate right of N. F is not an immediate neighbour of N. What is the position of K with respect to F?
E, F, G, H, K, L और N एक वृत्ताकार मेज के चारों ओर केंद्र की ओर मुख करके बैठे हैं।
L के बाएँ से गिनने पर H और L के बीच केवल एक व्यक्ति बैठा है। K, G के दाएँ से तीसरे स्थान पर बैठा है। N, E के बाएँ से तीसरे स्थान पर बैठा है। K, N के ठीक दाएँ बैठा है। F, N का निकटतम पड़ोसी नहीं है। F के सापेक्ष K का स्थान क्या है?

(1) Second to the left / बाएँ से दूसरा
(2) Immediate left / ठीक बाएँ ✔
(3) Third to the right / दाएँ से तीसरा
(4) Immediate right / ठीक दाएँ

Q.10 Based on the English alphabetical order, three of the following four are alike in a certain way and thus form a group. Which is the one that does not belong to that group?
(Note: The odd man out is not based on the number of consonants/vowels or their position in the letter cluster)
अंग्रेजी वर्णमाला क्रम के आधार पर, निम्नलिखित चार में से तीन किसी निश्चित प्रकार से एकसमान हैं और इस प्रकार एक समूह बनाते हैं। कौन-सा विकल्प उस समूह से संबंधित नहीं है?
(नोट: असंगत, उस अक्षर-समूह में व्यंजनों/स्वरों की संख्या या उनके स्थान पर आधारित नहीं है)

(1) XWS
(2) SRN
(3) QPL
(4) HHC ✔

Q.11 Amina ranked 15th from the bottom and 12th from the top in her class. How many students are there in her class?
अमीना अपनी कक्षा में नीचे से 15वें और ऊपर से 12वें स्थान पर रही। उसकी कक्षा में कितने विद्यार्थी हैं?

(1) 23
(2) 25
(3) 26 ✔
(4) 24

Q.12 Each of H, U, S, B, A, N and D has an exam on a different day of a week starting from Monday and ending on Sunday of the same week. H has an exam on Friday. Only two people have exams between N and H. Only four people have exams between S and N. A has an exam immediately after D. B doesn't have an exam on Monday. How many people have exam(s) between B and U?

H, U, S, B, A, N और D में से प्रत्येक की परीक्षा सप्ताह के एक अलग दिन है, जो सोमवार से शुरू होकर उसी सप्ताह के रविवार को समाप्त होता है। H की परीक्षा शुक्रवार को है। N और H के बीच केवल दो व्यक्तियों की परीक्षाएँ हैं। S और N के बीच केवल चार व्यक्तियों की परीक्षाएँ हैं। A की परीक्षा D के ठीक बाद है। B की परीक्षा सोमवार को नहीं है। B और U के बीच कितने व्यक्तियों की परीक्षा/परीक्षाएँ हैं?

(1) Three / तीन

(2) Two / दो

(3) One / एक

(4) Four / चार ✔

Q.13 This question is based on the five, three-digit numbers given below.

(Left) 761 693 728 643 723 (Right)

(Example- 697 – First digit = 6, second digit = 9 and third digit = 7)

NOTE - All operations to be done from left to right.

What will be the resultant if the second digit of the highest number is added to the third digit of the lowest number?

यह प्रश्न नीचे दी गई तीन अंकों वाली पाँच संख्याओं पर आधारित है।

(बाएँ) 761 693 728 643 723 (दाएँ)

(उदाहरण- 697 – पहला अंक = 6, दूसरा अंक = 9 और तीसरा अंक = 7)

नोट - सभी संक्रियाएँ बाएँ से दाएँ की जानी हैं।

यदि सबसे बड़ी संख्या के दूसरे अंक को सबसे छोटी संख्या के तीसरे अंक में जोड़ा जाए, तो परिणाम क्या होगा?

(1) 12

(2) 14

(3) 9 ✔

(4) 11

Q.14 If 'A' stands for '÷' , 'B' stands for 'x', 'C' stands for '+' and 'D' stands for '-', what will come in place of question mark '?' in the following equation?

22 B 2 D 8 A 2 C 12 = ?

यदि 'A' का अर्थ '÷' है, 'B' का अर्थ 'x' है, 'C' का अर्थ '+' है और 'D' का अर्थ '-' है, तो निम्नलिखित समीकरण में प्रश्न चिह्न '?' के स्थान पर क्या आएगा?

22 B 2 D 8 A 2 C 12 = ?

(1) 52 ✔

(2) 40

(3) 32

(4) 46

Q.15 Which of the following letter-number clusters will replace the question mark (?) in the given series to make it logically complete?
ZLG20, GSN30, NZU40, UGB50, ?

निम्नलिखित में से कौन-सा अक्षर-संख्या समूह दी गई श्रृंखला में प्रश्न चिह्न (?) का स्थान लेकर उसे तार्किक रूप से पूर्ण करेगा?
ZLG20, GSN30, NZU40, UGB50, ?

(1) DNI60
(2) **BNI60 ✔**
(3) BMI60
(4) BNJ60

Q.16 OPRT is related to XYAC in a certain way based on the English alphabetical order. In the same way, FGIK is related to OPRT. To which of the following is STVX related, following the same logic?

अंग्रेजी वर्णमाला क्रम के आधार पर OPRT एक निश्चित प्रकार से XYAC से संबंधित है। उसी प्रकार, FGIK, OPRT से संबंधित है। समान तर्क का अनुसरण करते हुए, STVX निम्नलिखित में से किससे संबंधित है?

(1) BBDG
(2) BDDG
(3) **BCEG ✔**
(4) BCDG

Q.17 Each vowel in the word ABESSIVE is changed to the second letter following it in the English alphabetical order and each consonant is changed to the letter immediately preceding it in the English alphabetical order. How many letters will appear exactly twice in the new group of letters thus formed?

शब्द ABESSIVE में प्रत्येक स्वर को अंग्रेजी वर्णमाला क्रम में उसके बाद आने वाले दूसरे अक्षर में बदल दिया जाता है और प्रत्येक व्यंजन को अंग्रेजी वर्णमाला क्रम में उसके ठीक पहले आने वाले अक्षर में बदल दिया जाता है। इस प्रकार बने अक्षरों के नए समूह में कितने अक्षर ठीक दो बार आएँगे?

(1) Three / तीन
(2) **Two / दो ✔**
(3) One / एक
(4) Four / चार

Q.18 S is the sister of A. A is the brother of Y. B is the father of W. W is the son of Y. How is S related to B?

S, A की बहन है। A, Y का भाई है। B, W का पिता है। W, Y का पुत्र है। S का B से क्या संबंध है?

(1) Wife / पत्नी
(2) Mother / माता
(3) Wife's mother / पत्नी की माता
(4) **Wife's sister / पत्नी की बहन ✔**

Q.19 6 is related to 41 following a certain logic. Following the same logic, 9 is related to 86. To which of the following is 11 related to, following the same logic?
(NOTE : Operations should be performed on the whole numbers, without breaking down the numbers into its constituent digits. E.g. 13 – Operations on 13 such as adding /subtracting /multiplying etc. to 13 can be performed.
Breaking down 13 into 1 and 3 and then performing mathematical operations on 1 and 3 is not allowed.)
एक निश्चित तर्क का अनुसरण करते हुए 6, 41 से संबंधित है। उसी तर्क का अनुसरण करते हुए, 9, 86 से संबंधित है। उसी तर्क का अनुसरण करते हुए, 11 निम्नलिखित में से किससे संबंधित है?
(नोट: संक्रियाएँ संख्याओं को उनके घटक अंकों में विभक्त किए बिना, पूर्ण संख्याओं पर की जानी चाहिए। उदाहरण के लिए 13 – 13 पर संक्रियाएँ जैसे 13 में जोड़ना/घटाना/गुणा करना आदि की जा सकती हैं।
13 को 1 और 3 में विभक्त करना और फिर 1 और 3 पर गणितीय संक्रियाएँ करना वर्जित है।)

(1) 116
(2) 126 ✔
(3) 76
(4) 106

Q.20 In a certain code language, 'PALE' is coded as '5328' and 'PILE' is coded as '7238'. What is the code for 'I' in the given code language?
एक निश्चित कूट भाषा में, 'PALE' को '5328' के रूप में कूटबद्ध किया जाता है और 'PILE' को '7238' के रूप में कूटबद्ध किया जाता है। दी गई कूट भाषा में 'I' के लिए कूट क्या है?

(1) 3
(2) 2
(3) 7 ✔
(4) 5

General Awareness

Q.21 India celebrates National Panchayati Raj Day in the month of April. On which of the following dates was it observed in the year 2025?
भारत अप्रैल माह में राष्ट्रीय पंचायती राज दिवस मनाता है। वर्ष 2025 में यह निम्नलिखित में से किस तिथि को मनाया गया?

(1) 5th April, 2025 / 5 अप्रैल, 2025
(2) 24th April, 2025 / 24 अप्रैल, 2025 ✔
(3) 1st April, 2025 / 1 अप्रैल, 2025
(4) 2nd April, 2025 / 2 अप्रैल, 2025

Q.22 180 g of glucose ($C_6H_{12}O_6$) is dissolved in 1 kg of water. At what temperature will water boil at 1.013 bar (Kb for water is 0.52K kg mol^{-1})?
180 g ग्लूकोज ($C_6H_{12}O_6$) को 1 kg जल में घोला जाता है। 1.013 bar पर जल किस तापमान पर उबलेगा (जल के लिए Kb का मान 0.52K kg mol^{-1} है)?

(1) 373.67 K ✔
(2) 373.15 K
(3) 373.27 K
(4) 373.202 K

Q.23 Which of the following provisions is included in the Constitution (One Hundred and Thirtieth Amendment) Bill, 2025, introduced in Lok Sabha on 20 August 2025?

20 अगस्त 2025 को लोकसभा में पेश किए गए संविधान (एक सौ तीसवाँ संशोधन) विधेयक, 2025 में निम्नलिखित में से कौन-सा प्रावधान शामिल है?

(1) A Minister removed from office under these provisions cannot be re-appointed after being released from custody. / इन प्रावधानों के तहत पद से हटाए गए मंत्री को हिरासत से रिहा होने के बाद पुनः नियुक्त नहीं किया जा सकता है।

(2) In the case of Prime Minister of India, he/she must resign by the 90th consecutive day of custody. / भारत के प्रधानमंत्री के मामले में, उन्हें हिरासत के लगातार 90वें दिन तक त्यागपत्र देना होगा।

(3) A Minister will be removed from office if he has been arrested and detained in custody for 30 consecutive days. / यदि किसी मंत्री को गिरफ्तार किया गया है और लगातार 30 दिनों तक हिरासत में रखा गया है, तो उसे पद से हटा दिया जाएगा। ✔

(4) It is not applicable to the State Cabinet Ministers unless advised by the Supreme Court of India / यह राज्य के कैबिनेट मंत्रियों पर तब तक लागू नहीं होता है जब तक कि भारत के सर्वोच्च न्यायालय द्वारा सलाह न दी जाए

Q.24 What were the recommended national poverty lines for rural and urban areas by the Tendulkar Committee for 2011-12?

तेंदुलकर समिति द्वारा 2011-12 के लिए ग्रामीण और शहरी क्षेत्रों हेतु अनुशंसित राष्ट्रीय गरीबी रेखाएँ क्या थीं?

(1) ₹1,000 per capita per month for rural areas and ₹1,200 per capita per month for urban areas / ग्रामीण क्षेत्रों के लिए ₹1,000 प्रति व्यक्ति प्रति माह और शहरी क्षेत्रों के लिए ₹1,200 प्रति व्यक्ति प्रति माह

(2) ₹816 per capita per month for rural areas and ₹1,000 per capita per month for urban areas / ग्रामीण क्षेत्रों के लिए ₹816 प्रति व्यक्ति प्रति माह और शहरी क्षेत्रों के लिए ₹1,000 प्रति व्यक्ति प्रति माह ✔

(3) ₹500 per capita per month for rural areas and ₹700 per capita per month for urban areas / ग्रामीण क्षेत्रों के लिए ₹500 प्रति व्यक्ति प्रति माह और शहरी क्षेत्रों के लिए ₹700 प्रति व्यक्ति प्रति माह

(4) ₹700 per capita per month for rural areas and ₹800 per capita per month for urban areas / ग्रामीण क्षेत्रों के लिए ₹700 प्रति व्यक्ति प्रति माह और शहरी क्षेत्रों के लिए ₹800 प्रति व्यक्ति प्रति माह

Q.25 Why was NITI Aayog established as a replacement for the Planning Commission?

योजना आयोग के स्थान पर नीति आयोग की स्थापना क्यों की गई थी?

(1) To limit state participation in national policies / राष्ट्रीय नीतियों में राज्यों की भागीदारी को सीमित करने के लिए

(2) To abolish financial allocation mechanisms / वित्तीय आवंटन तंत्र को समाप्त करने के लिए

(3) To centralise policymaking in the Union Government / केंद्र सरकार में नीति-निर्माण को केंद्रीकृत करने के लिए

(4) To strengthen cooperative federalism in policy formulation / नीति निर्माण में सहकारी संघवाद को सुदृढ़ करने के लिए ✔

Q.26 As per the 2025 announcement, what is the minimum financial requirement for acquiring U.S. citizenship through the newly introduced Gold Card Visa?

2025 की घोषणा के अनुसार, नए शुरू किए गए गोल्ड कार्ड वीज़ा के माध्यम से अमेरिकी नागरिकता प्राप्त करने के लिए न्यूनतम वित्तीय आवश्यकता क्या है?

(1) $5 million / $5 मिलियन ✔

(2) $4 million / $4 मिलियन

(3) $6 million / $6 मिलियन

(4) $2 million / $2 मिलियन

Q.27 All Lok Adalat proceedings are deemed judicial proceedings under the Bharatiya Nyaya Sanhita passed in the year _____.

वर्ष _____ में पारित भारतीय न्याय संहिता के तहत लोक अदालत की सभी कार्यवाहियों को न्यायिक कार्यवाही माना जाता है।

(1) 2020

(2) 2016

(3) 2018

(4) 2023 ✔

Q.28 Which of the following statements correctly describes the Great Indian Desert?

निम्नलिखित में से कौन-सा कथन महान भारतीय मरुस्थल का सही वर्णन करता है?

(1) It is located in the northeastern part of India and receives high rainfall / यह भारत के उत्तर-पूर्वी भाग में स्थित है और यहाँ अधिक वर्षा होती है

(2) It lies to the east of the Aravalli Hills and has fertile alluvial soil / यह अरावली पहाड़ियों के पूर्व में स्थित है और यहाँ उपजाऊ जलोढ़ मिट्टी पाई जाती है

(3) It is a hot desert located in northwestern India with arid climate and sandy soil / यह उत्तर-पश्चिमी भारत में स्थित एक गर्म मरुस्थल है, जहाँ शुष्क जलवायु और रेतीली मिट्टी पाई जाती है ✔

(4) It is formed by volcanic eruptions and is rich in black soil / इसका निर्माण ज्वालामुखी विस्फोटों से हुआ है और यह काली मिट्टी से समृद्ध है

Q.29 What was the outcome of the conflict between the Mughals and Chand Bibi in Ahmednagar during 1595?

1595 के दौरान अहमदनगर में मुगलों और चाँद बीबी के बीच हुए संघर्ष का परिणाम क्या था?

(1) The Mughals were killed by the nobles. / मुगलों को अमीरों द्वारा मार दिया गया।

(2) Chand Bibi successfully defeated the Mughals. / चाँद बीबी ने मुगलों को सफलतापूर्वक पराजित किया।

(3) The Mughals withdrew from Ahmednagar. / मुगल अहमदनगर से पीछे हट गए।

(4) A treaty was reached, and Chand Bibi ceded Berar to the Mughals. / एक संधि हुई, और चाँद बीबी ने बरार मुगलों को सौंप दिया। ✔

Q.30 The National Sports Policy (NSP), 2024, is built upon how many key pillars?

राष्ट्रीय खेल नीति (NSP), 2024 कितने प्रमुख स्तंभों पर आधारित है?

(1) Five / पाँच ✔

(2) Seven / सात

(3) Four / चार

(4) Six / छह

Q.31 Which of the following is NOT included in the calculation of Gross Domestic Product (GDP)?

निम्नलिखित में से किसे सकल घरेलू उत्पाद (GDP) की गणना में शामिल नहीं किया जाता है?

(1) Net exports / निवल निर्यात

(2) Sale or purchase of second-hand goods / पुरानी (सेकंड-हैंड) वस्तुओं की बिक्री या खरीद

(3) Government purchases of goods and services / सरकार द्वारा वस्तुओं और सेवाओं की खरीद

(4) Transfer payments from the government / सरकार द्वारा अंतरण भुगतान ✔

Q.32 Which of the following island features is exclusively found in the Lakshadweep group but not in the Andaman and Nicobar group?

निम्नलिखित में से कौन-सी द्वीपीय विशेषता विशेष रूप से लक्षद्वीप समूह में पाई जाती है, परंतु अंडमान और निकोबार समूह में नहीं?

(1) Indigenous tribal settlements / स्वदेशी जनजातीय बस्तियाँ

(2) **Atoll formations / प्रवाल वलय (एटॉल) संरचनाएँ ✔**

(3) Volcanic activity / ज्वालामुखीय गतिविधि

(4) Tropical evergreen forests / उष्णकटिबंधीय सदाबहार वन

Q.33 According to the Constitution of India, which of the following does not disqualify a person from being a member of a Panchayat?

भारत के संविधान के अनुसार, निम्नलिखित में से कौन-सा किसी व्यक्ति को पंचायत का सदस्य होने के लिए अयोग्य नहीं ठहराता है?

(1) **Being disqualified by the Election Commission under the Representation of the People Act, 1951 / लोक प्रतिनिधित्व अधिनियम, 1951 के तहत निर्वाचन आयोग द्वारा अयोग्य ठहराया जाना ✔**

(2) Being below 21 years of age on the date of the election / निर्वाचन की तिथि को 21 वर्ष से कम आयु का होना

(3) Being disqualified under a law made for elections to the State Legislature / राज्य विधानमंडल के निर्वाचन के लिए बनाए गए किसी कानून के तहत अयोग्य ठहराया जाना

(4) Being disqualified by a law made for the elections, by the State Legislature or the Parliament / संसद या राज्य विधानमंडल द्वारा निर्वाचन के लिए बनाए गए किसी कानून द्वारा अयोग्य ठहराया जाना

Q.34 Which two countries signed an agreement to create a joint investment fund for Ukraine's reconstruction in April 2025?

अप्रैल 2025 में किन दो देशों ने यूक्रेन के पुनर्निर्माण के लिए एक संयुक्त निवेश कोष बनाने हेतु एक समझौते पर हस्ताक्षर किए?

(1) **Ukraine and the United States of America / यूक्रेन और संयुक्त राज्य अमेरिका ✔**

(2) Ukraine and France / यूक्रेन और फ्रांस

(3) Ukraine and Germany / यूक्रेन और जर्मनी

(4) Ukraine and Poland / यूक्रेन और पोलैंड

Q.35 The concentration of a solution cannot be described by _____.

किसी विलयन की सांद्रता को _____ द्वारा व्यक्त नहीं किया जा सकता है।

(1) parts per million / पार्ट्स पर मिलियन (ppm)

(2) **volume by mass percentage (V/w) / आयतन द्वारा द्रव्यमान प्रतिशत (V/w) ✔**

(3) mole fraction / मोल अंश

(4) mass by volume percentage (w/V) / द्रव्यमान द्वारा आयतन प्रतिशत (w/V)

Q.36 Where did Harihara and Bukka establish their capital city, Vijayanagar?

हरिहर और बुक्का ने अपनी राजधानी विजयनगर की स्थापना कहाँ की थी?

(1) **On the banks of the Tungabhadra River / तुंगभद्रा नदी के तट पर ✔**

(2) On the banks of the Yamuna River / यमुना नदी के तट पर

(3) On the banks of the Bhima River / भीमा नदी के तट पर

(4) On the banks of the Godavari River / गोदावरी नदी के तट पर

Q.37 The 'Pallavi' section in Carnatic music is best described as:

कर्नाटक संगीत में 'पल्लवी' खंड का सबसे उपयुक्त वर्णन है:

(1) A single thematic line elaborated upon / एक एकल विषयगत पंक्ति, जिसका विस्तार किया जाता है ✔

(2) A detailed depiction of mythological stories / पौराणिक कथाओं का विस्तृत चित्रण

(3) The concluding devotional song / समापन भक्ति गीत

(4) The fastest part of improvisation / तात्कालिक रचना (इम्प्रोवाइज़ेशन) का सबसे तेज़ भाग

Q.38 What is the primary difference between closed and open economies?

बंद और खुली अर्थव्यवस्थाओं के बीच प्राथमिक अंतर क्या है?

(1) International trade / अंतर्राष्ट्रीय व्यापार ✔

(2) Domestic production / घरेलू उत्पादन

(3) Government intervention / सरकारी हस्तक्षेप

(4) Consumer preferences / उपभोक्ता वरीयताएँ

Q.39 Jaisalmer Fort, built by Rawal Jaisal on the Trikuta Hill, has how many layers of walls?

त्रिकूट पहाड़ी पर रावल जैसल द्वारा निर्मित जैसलमेर किले में दीवारों की कितनी परतें हैं?

(1) four / चार

(2) three / तीन ✔

(3) two / दो

(4) five / पाँच

Q.40 During the First Battle of Panipat, Babur triumphed despite a smaller force; this success was chiefly due to the adoption of which of the following strategic battle techniques?

पानीपत के प्रथम युद्ध के दौरान, छोटी सेना होने के बावजूद बाबर विजयी हुआ; यह सफलता मुख्य रूप से निम्नलिखित में से किस रणनीतिक युद्ध तकनीक को अपनाने के कारण मिली थी?

(1) Night-ambush guerrilla strikes / रात्रिकालीन घात लगाकर गुरिल्ला हमले

(2) Rumi method of warfare / युद्ध की रूमी पद्धति ✔

(3) Heavy artillery horse charge / भारी तोपखाने के साथ घुड़सवार आक्रमण

(4) Zig-zag cavalry manoeuvre / टेढ़ी-मेढ़ी (ज़िग-ज़ैग) घुड़सवार सेना युक्ति

Arithmetical and Numerical Ability

Q.41 A train 125 m long overtakes a man walking at 9 km/h in the same direction in 45 seconds. How many seconds will it take the train to completely cross another train 220 m long, coming from the opposite direction at 27 km/h?

125 m लंबी एक रेलगाड़ी, उसी दिशा में 9 km/h की चाल से चल रहे एक व्यक्ति को 45 सेकंड में पार करती है। यह रेलगाड़ी विपरीत दिशा से 27 km/h की चाल से आ रही 220 m लंबी एक अन्य रेलगाड़ी को पूरी तरह से पार करने में कितने सेकंड लेगी?

(1) 46

(2) 16

(3) 27 ✔

(4) 12

Q.42 A and B complete a work in 9 days. If A alone can do it in 36 days, then B alone can do three-fourth of the same work in _____ days.

A और B एक कार्य को 9 दिनों में पूरा करते हैं। यदि A अकेले उसे 36 दिनों में कर सकता है, तो B अकेले उसी कार्य का तीन-चौथाई भाग _____ दिनों में कर सकता है।

(1) 36

(2) 18

(3) 27

(4) 9 ✔

Q.43 A trader marked the selling price of an article at 20% above the article's cost price. At the time of selling, he allows a certain discount and suffers a loss of 1%. The discount allowed is _____.

एक व्यापारी ने एक वस्तु का विक्रय मूल्य वस्तु के क्रय मूल्य से 20% अधिक अंकित किया। बेचते समय, वह एक निश्चित छूट देता है और उसे 1% की हानि होती है। दी गई छूट _____ है।

(1) 19.5%

(2) 18.5%

(3) 20.5%

(4) 17.5% ✔

Q.44 The sum of 10 numbers is 600. Find their average.

10 संख्याओं का योग 600 है। उनका औसत ज्ञात करें।

(1) 58

(2) 59

(3) 60 ✔

(4) 61

Q.45 If 54% of first number is equal to five-sevenths of second number, what is the ratio of first number to the second number?

यदि पहली संख्या का 54%, दूसरी संख्या के पाँच-सातवें भाग के बराबर है, तो पहली संख्या का दूसरी संख्या से अनुपात क्या है?

(1) 251 : 186

(2) 255 : 194

(3) 246 : 192

(4) 250 : 189 ✔

Q.46 What sum (in ₹) will earn a simple interest of ₹1680 in 3 years at 20% per annum?

कितनी राशि (₹ में) पर 20% वार्षिक की दर से 3 वर्षों में ₹1680 का साधारण ब्याज प्राप्त होगा?

(1) 2800 ✔

(2) 2700

(3) 2600

(4) 2900

QuickSarkari.com | WhatsApp Channel | Telegram: t.me/quick_sarkari

Q.47 A product is sold at a profit of 67%. If the cost price and selling price are reversed, determine the loss percentage (rounded off to two decimal places).

एक उत्पाद को 67% के लाभ पर बेचा जाता है। यदि क्रय मूल्य और विक्रय मूल्य को आपस में बदल दिया जाए, तो हानि प्रतिशत ज्ञात करें (दशमलव के दो स्थानों तक पूर्णांकित)।

(1) 41.15%

(2) 41.64%

(3) 40.07%

(4) 40.12% ✔

Q.48 The following pie chart shows the percentage of educated and uneducated men and women in a city.

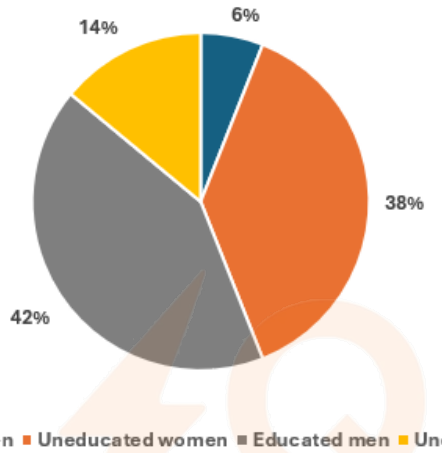

What is the difference between the number of educated men and uneducated women, if the total number of men and women in the city is 5,88,000?

निम्नलिखित पाई चार्ट एक शहर में शिक्षित और अशिक्षित पुरुषों और महिलाओं का प्रतिशत दर्शाता है।

यदि शहर में पुरुषों और महिलाओं की कुल संख्या 5,88,000 है, तो शिक्षित पुरुषों और अशिक्षित महिलाओं की संख्या के बीच कितना अंतर है?

(1) 25,000

(2) 50,000

(3) 42,480

(4) 23,520 ✔

Q.49 Simplify: (1/3 ÷ 1/3 × 1/3)/(1/3 + 1/3 of 1/3)

सरल कीजिए: (1/3 ÷ 1/3 × 1/3)/(1/3 + 1/3 का 1/3)

(1) 0.75 ✔

(2) 0.5

(3) 0.83

(4) 0.67

Q.50 Simplify: (12/18)/(12/5) ÷ (2/9 × 18/6 + 2/6) + 5/6 ÷ 18/12 of 12/6

सरल कीजिए: (12/18)/(12/5) ÷ (2/9 × 18/6 + 2/6) + 5/6 ÷ 18/12 का 12/6

(1) 13/14

(2) 5/9 ✔

(3) 9/4

(4) 1/5

Q.51 Three friends X, Y and Z started a business by investing a sum of money in the ratio of 7 : 5 : 6. After 6 months X withdraws half of his capital. If the sum invested by Z is ₹12000, out of a total annual profit of ₹65000, What is the difference between the X's and Y's profit?

तीन मित्रों X, Y और Z ने 7 : 5 : 6 के अनुपात में धनराशि निवेश करके एक व्यवसाय शुरू किया। 6 महीने बाद X अपनी आधी पूंजी निकाल लेता है। यदि Z द्वारा निवेश की गई राशि ₹12000 है, तो ₹65000 के कुल वार्षिक लाभ में से X और Y के लाभ के बीच कितना अंतर है?

(1) ₹845

(2) ₹1000 ✔

(3) ₹2730

(4) ₹595

Q.52 A customer receives 950g sugar instead of 1kg from a dishonest shopkeeper. If the shopkeeper claims to sell at cost price, what is his actual profit percentage? (Round off your answer to two decimal places.)

एक बेईमान दुकानदार से एक ग्राहक को 1kg के स्थान पर 950g चीनी प्राप्त होती है।
यदि दुकानदार क्रय मूल्य पर बेचने का दावा करता है, तो उसका वास्तविक लाभ प्रतिशत क्या है? (अपने उत्तर को दशमलव के दो स्थानों तक पूर्णांकित करें।)

(1) 5.26% ✔

(2) 4.76%

(3) 5.13%

(4) 6.31%

Q.53 If by melting 8 solid metallic spheres, each of radius 5 cm, a big solid sphere is made, then what will be the radius of the big solid sphere?

यदि 5 cm त्रिज्या वाले 8 ठोस धात्विक गोलों को पिघलाकर एक बड़ा ठोस गोला बनाया जाता है, तो बड़े ठोस गोले की त्रिज्या क्या होगी?

(1) 20 cm

(2) 40 cm

(3) 10 cm ✔

(4) 5 cm

Q.54 Jyoti can cover a distance of 280 meters in 36 seconds. At that given speed how much distance can Jyoti cover in one hour?

ज्योति 36 सेकंड में 280 मीटर की दूरी तय कर सकती है। उसी दी गई चाल से ज्योति एक घंटे में कितनी दूरी तय कर सकती है?

(1) 24 km

(2) 30 km

(3) 26 km

(4) 28 km ✔

Q.55 Rodney has two grandsons Amit and Gopal. 15 year old Amit gets some money from Rodney's wealth and 16 year old Gopal gets the rest of the money. But Amit and Gopal will get the money only when they turn 21 years old. Till then the money will be kept in a bank earning interest at the rate of 4% per annum, compounded annually. When both turn 21, they receive the same amount. How much money (in ₹) had Rodney initially given Gopal, if the total money Rodney had was ₹25,500?

रॉडनी के दो पोते अमित और गोपाल हैं। 15 वर्षीय अमित को रॉडनी की संपत्ति में से कुछ धनराशि मिलती है और 16 वर्षीय गोपाल को शेष धनराशि मिलती है। परंतु अमित और गोपाल को यह धनराशि तभी मिलेगी जब वे 21 वर्ष के हो जाएँगे। तब तक यह धनराशि एक बैंक में 4% वार्षिक की दर से वार्षिक रूप से चक्रवृद्धि होने वाले ब्याज पर रखी जाएगी। जब दोनों 21 वर्ष के हो जाते हैं, तो उन्हें समान राशि प्राप्त होती है। यदि रॉडनी के पास कुल धनराशि ₹25,500 थी, तो रॉडनी ने आरंभ में गोपाल को कितनी धनराशि (₹ में) दी थी?

(1) 12,500

(2) 13,350

(3) **13,000** ✔

(4) 12,250

Q.56 In a test, B got 54 marks while A got 75 marks, out of 110 maximum marks.
What approximate percentage of B's marks was A's marks?

एक परीक्षा में, अधिकतम 110 अंकों में से B को 54 अंक मिले जबकि A को 75 अंक मिले।
A के अंक, B के अंकों का लगभग कितना प्रतिशत थे?

(1) **138.89%** ✔

(2) 72%

(3) 68.18%

(4) 110%

Q.57 At a health club, 60% of the members are women and 40% of the members are men. If the average age of the men is 21 years and the average age of the women is 59 years, what is the average age (in years) of all the members?

एक हेल्थ क्लब में, 60% सदस्य महिलाएँ हैं और 40% सदस्य पुरुष हैं। यदि पुरुषों की औसत आयु 21 वर्ष है और महिलाओं की औसत आयु 59 वर्ष है, तो सभी सदस्यों की औसत आयु (वर्षों में) क्या है?

(1) **43.8** ✔

(2) 34.5

(3) 37.8

(4) 40.2

Q.58 A solid toy is in the form of a right circular cylinder with a hemispherical shape at one end and a cone at the other end. Their common radius is 2 cm and the height of the cylinder and cone are 15 cm and 8 cm, respectively.

Find the volume (in cm^3) of the toy.

एक ठोस खिलौना एक लंब वृत्तीय बेलन के आकार का है, जिसके एक सिरे पर अर्धगोलाकार आकृति और दूसरे सिरे पर एक शंकु है। उनकी उभयनिष्ठ त्रिज्या 2 cm है तथा बेलन और शंकु की ऊँचाई क्रमशः 15 cm और 8 cm है।

खिलौने का आयतन (cm^3 में) ज्ञात करें।

(1) 96π

(2) **76π** ✔

(3) 86π

(4) 67π

Q.59 Find the volume of a frustum of height 10 cm and radii of the two ends 5 cm and 2 cm, respectively.
10 cm ऊँचाई और दोनों सिरों की त्रिज्याएँ क्रमशः 5 cm और 2 cm वाले एक छिन्नक का आयतन ज्ञात करें।

(1) **130π cm^3 ✔**
(2) 150π cm^3
(3) 125π cm^3
(4) 120π cm^3

Q.60 A can complete a piece of work in 17 days. The portion of work remaining after A works alone for 7 days is:
A किसी कार्य को 17 दिनों में पूरा कर सकता है। A द्वारा 7 दिनों तक अकेले कार्य करने के बाद शेष बचा कार्य का भाग है:

(1) 6/17
(2) **10/17 ✔**
(3) 7/17
(4) 11/17

English Language and Comprehension

Q.61 Select the option that can be used as a one-word substitute for the given group of words.
A person who refuses to obey the laws or rules of a society

(1) Faithful
(2) Authoritarian
(3) **Anarchist ✔**
(4) Rightist

Q.62 In the following sentence, choose the word that can replace the underlined phrase.
After his retirement, he chose to live as a person whose life is away from society and people.

(1) refugee
(2) nomad
(3) pioneer
(4) **recluse ✔**

Q.63 Select the most appropriate option to fill in the blank.
I gifted _____ umbrella to the old man.

(1) a
(2) the
(3) **an ✔**
(4) No article required

Q.64 Fill in the blank with the correct option.
The company _____ a new policy regarding employee benefits.

(1) **implemented ✔**
(2) travelled
(3) celebrated
(4) cooked

Q.65 Replace the underlined word segment with the correct idiom.
The final date of the workshop is not yet decided.

(1) set in stone
(2) **up in the air ✔**
(3) under the weather
(4) on the cards

Q.66 Select the most appropriate option to fill in the blank.
Amitabh Bachchan is _____ for his iconic roles.

(1) raised
(2) **celebrated ✔**
(3) forgiven
(4) abated

Q.67 Parts of a sentence are given below in jumbled order. Arrange the parts in the correct order to form a meaningful sentence.
A. well-rounded and fulfilling life
B. of success are significant, and
C. both external and internal measures
D. they can coexist to create a

(1) DCBA
(2) BDAC
(3) **CBDA ✔**
(4) ABCD

Q.68 Identify the word which is not spelt correctly.
The teacher appreciated the student's dilligence, creativity, and enthusiasm.

(1) appreciated
(2) enthusiasm
(3) **dilligence ✔**
(4) creativity

Q.69 Select the most appropriate article to fill in the blank. If no article is needed, select 'No article required'.
It takes two to make _____ quarrel.

(1) No article required
(2) **a ✔**
(3) the
(4) an

Q.70 Parts of the given sentence have been underlined. One of them contains a spelling error. The underlined parts are given as options with some changes. Select the option that correctly rectifies the error.
There is some concollation for fans because the team still stands a chance of winning the local championship.

(1) beceause
(2) **consolation ✔**
(3) chempionsship
(4) wiining

Q.71 Select the most appropriate synonym of the underlined word in the given sentence.
His decision was irrevocable.

(1) irrespective
(2) **irreversible ✔**
(3) irrelevant
(4) irregular

Q.72 Select the most appropriate option that can substitute the underlined segment in the given proverb.
It's a risk, but the reward could be great. I say you go for it. Fortune governs the old.

(1) Fortune is not for the bolds.
(2) **Fortune favors the bold. ✔**
(3) Fortune is all that matters.
(4) Fortune dictates the enemies.

Q.73 Parts of a sentence are given below. While the first part is in the correct place, the remaining parts (labelled P, Q, R and S) are jumbled up. Arrange the parts in the correct order to form a meaningful and coherent sentence.
1. Approximately 90 percent
P. occurs in the stratosphere,
Q. to approximately 50 km above the earth's surface
R. of the atmosphere's ozone
S. the region extending from 10 to 18 km

(1) RSQP
(2) PSRQ
(3) RPQS
(4) **RPSQ ✔**

Q.74 Select the most appropriate option to fill in the blank.
Corbett's expertise as a tracker of man-eating tigers and leopards _____ him great respect.

(1) expected
(2) abided
(3) acquired
(4) **earned ✔**

Q.75 Select the option that is the most appropriate antonym of the highlighted word in the given sentence.
His explanation was cryptic and hard to follow.

(1) mysterious
(2) brief
(3) **clear ✔**
(4) puzzling

Q.76

Read the given passage carefully and answer the following questions.
Rapid urbanization and the rise of high-rise buildings have made cities around the world more vulnerable to earthquakes, a problem particularly acute in seismically active regions. In many places, including parts of India, urban planning has not kept pace with the construction boom, leading to buildings that may not be adequately prepared to withstand a major seismic event. While India's seismic risk varies by region, the rapid growth of high-rises, often built without rigorous enforcement of building codes, presents a significant risk to millions of people. This lack of proactive planning puts communities in danger, as buildings and infrastructure could collapse during a severe quake. Japan, which faces a constant threat of earthquakes, offers a model for effective urban planning. The country's solution lies in a combination of strict building codes and innovative engineering. A key technique is base isolation, where buildings are constructed on flexible pads or bearings that absorb the ground's shaking, isolating the structure from seismic energy. Additionally, engineers use dampers, or shock absorbers, within the building's frame to dissipate energy from an earthquake, preventing the building from swaying too much. These technologies are not only a requirement for new construction but are also being retrofitted into older buildings. This proactive, technology-driven approach ensures that Japanese cities are built to coexist with seismic activity, offering a crucial lesson in resilience for other nations facing similar risks.

What is the correct tone for the passage?

(1) Humorous and satirical
(2) **Critical and cautionary ✔**
(3) Optimistic and celebratory
(4) Indifferent and detached

Q.77

Read the given passage carefully and answer the following questions.
Rapid urbanization and the rise of high-rise buildings have made cities around the world more vulnerable to earthquakes, a problem particularly acute in seismically active regions. In many places, including parts of India, urban planning has not kept pace with the construction boom, leading to buildings that may not be adequately prepared to withstand a major seismic event. While India's seismic risk varies by region, the rapid growth of high-rises, often built without rigorous enforcement of building codes, presents a significant risk to millions of people. This lack of proactive planning puts communities in danger, as buildings and infrastructure could collapse during a severe quake. Japan, which faces a constant threat of earthquakes, offers a model for effective urban planning. The country's solution lies in a combination of strict building codes and innovative engineering. A key technique is base isolation, where buildings are constructed on flexible pads or bearings that absorb the ground's shaking, isolating the structure from seismic energy. Additionally, engineers use dampers, or shock absorbers, within the building's frame to dissipate energy from an earthquake, preventing the building from swaying too much. These technologies are not only a requirement for new construction but are also being retrofitted into older buildings. This proactive, technology-driven approach ensures that Japanese cities are built to coexist with seismic activity, offering a crucial lesson in resilience for other nations facing similar risks.

What is the primary structure of the passage?

(1) Compare and contrast
(2) Chronological
(3) Cause and effect
(4) **Problem and solution ✔**

Q.78

Read the given passage carefully and answer the following questions.
Rapid urbanization and the rise of high-rise buildings have made cities around the world more vulnerable to earthquakes, a problem particularly acute in seismically active regions. In many places, including parts of India, urban planning has not kept pace with the construction boom, leading to buildings that may not be adequately prepared to withstand a major seismic event. While India's seismic risk varies by region, the rapid growth of high-rises, often built without rigorous enforcement of building codes, presents a significant risk to millions of people. This lack of proactive planning puts communities in danger, as buildings and infrastructure could collapse during a severe quake. Japan, which faces a constant threat of earthquakes, offers a model for effective urban planning. The country's solution lies in a combination of strict building codes and innovative engineering. A key technique is base isolation, where buildings are constructed on flexible pads or bearings that absorb the ground's shaking, isolating the structure from seismic energy. Additionally, engineers use dampers, or shock absorbers, within the building's frame to dissipate energy from an earthquake, preventing the building from swaying too much. These technologies are not only a requirement for new construction but are also being retrofitted into older buildings. This proactive, technology-driven approach ensures that Japanese cities are built to coexist with seismic activity, offering a crucial lesson in resilience for other nations facing similar risks.

Which of the following facts can be inferred from the passage?

(1) Older buildings in Japan are not being updated with new safety features.
(2) Japan's urban planning is less concerned with seismic safety than India's.
(3) The majority of Indian cities are located in high seismic risk zones.
(4) The enforcement of building codes in India is a significant challenge. ✔

Q.79

Read the given passage carefully and answer the following questions.
Rapid urbanization and the rise of high-rise buildings have made cities around the world more vulnerable to earthquakes, a problem particularly acute in seismically active regions. In many places, including parts of India, urban planning has not kept pace with the construction boom, leading to buildings that may not be adequately prepared to withstand a major seismic event. While India's seismic risk varies by region, the rapid growth of high-rises, often built without rigorous enforcement of building codes, presents a significant risk to millions of people. This lack of proactive planning puts communities in danger, as buildings and infrastructure could collapse during a severe quake. Japan, which faces a constant threat of earthquakes, offers a model for effective urban planning. The country's solution lies in a combination of strict building codes and innovative engineering. A key technique is base isolation, where buildings are constructed on flexible pads or bearings that absorb the ground's shaking, isolating the structure from seismic energy. Additionally, engineers use dampers, or shock absorbers, within the building's frame to dissipate energy from an earthquake, preventing the building from swaying too much. These technologies are not only a requirement for new construction but are also being retrofitted into older buildings. This proactive, technology-driven approach ensures that Japanese cities are built to coexist with seismic activity, offering a crucial lesson in resilience for other nations facing similar risks.

Based on the passage, what is the best synonym for "resilience"?

(1) Vulnerability
(2) Fragility
(3) Adaptability ✔
(4) Rigid

Q.80

Read the given passage carefully and answer the following questions.
Rapid urbanization and the rise of high-rise buildings have made cities around the world more vulnerable to earthquakes, a problem particularly acute in seismically active regions. In many places, including parts of India, urban planning has not kept pace with the construction boom, leading to buildings that may not be adequately prepared to withstand a major seismic event. While India's seismic risk varies by region, the rapid growth of high-rises, often built without rigorous enforcement of building codes, presents a significant risk to millions of people. This lack of proactive planning puts communities in danger, as buildings and infrastructure could collapse during a severe quake. Japan, which faces a constant threat of earthquakes, offers a model for effective urban planning. The country's solution lies in a combination of strict building codes and innovative engineering. A key technique is base isolation, where buildings are constructed on flexible pads or bearings that absorb the ground's shaking, isolating the structure from seismic energy. Additionally, engineers use dampers, or shock absorbers, within the building's frame to dissipate energy from an earthquake, preventing the building from swaying too much. These technologies are not only a requirement for new construction but are also being retrofitted into older buildings. This proactive, technology-driven approach ensures that Japanese cities are built to coexist with seismic activity, offering a crucial lesson in resilience for other nations facing similar risks.

Identify an appropriate title for the passage.

(1) The Beautiful Marvels of Japanese Architecture
(2) The Dangers of Urbanization in High-Risk Earthquake Zones
(3) **Japan's Proactive Earthquake Proof Urban Planning ✔**
(4) Innovative Engineering in the Modern Age

Hindi Language and Comprehension

Q.81 "काला अक्षर भैंस बराबर"- लोकोक्तिका अर्थ बताइए-

(1) **अनपढ़ होना ✔**
(2) अदूरदर्शी होना
(3) समदर्शी होना
(4) छिद्रान्वेषी होना

Q.82 दिए गए वाक्यांश एक वाक्य के अभिन्न अंग हैं,जो क्रम से नहीं दिए गए हैं निम्नलिखित वाक्यांशों को सही क्रम में लगाइए- 1.गोरखपुर की किताबें पढ़ने का यत्न करने लगे हैं।
2.संध्या पूजा करने और गीता प्रेस 3.वैसे-वैसे वह भी किशन दा की तरह रोज मंदिर जाने, 4.जैसे-जैसे उम्र ढल रही है

(1) 1,2,3,4
(2) 2,1,4,3
(3) 4,2,3,1
(4) **4,3,2,1 ✔**

Q.83 'बाँह गहे की लाज' लोकोक्तिका सही अर्थ क्या होगा?

(1) हराम की कमाई बेकार जाती है ।
(2) **शरण में आए की रक्षा करनी चाहिए । ✔**
(3) विपत्ति में बुद्धि काम नहीं करती है ।
(4) किसी की शह पाकर ही आदमी अकड़ दिखाता है ।

Q.84 नीचे दिए गए वाक्य के किस भाग में वर्तनी संबंधी अशुद्धिहै?
झौंपड़ी में एक साँप घुस आया ।

(1) झौंपड़ी ✔
(2) में एक
(3) साँप
(4) घुस आया ।

Q.85 निम्नलिखित में से किस लोकोक्तिका अर्थ संगत नहीं है?

(1) कौड़ी नहीं गाँठ चले बाग की सैर - साधन नहीं तो काम क्यों करने लगे
(2) आँख एक नहीं कजरौटा दस-दस - बुरे काम का बुरा फल ✔
(3) उसी की जूती उसी का सिर - जिसकी करनी, उसी को फल मिलता है
(4) उलटी गंगा पहाड़ को चली- विपरीत बात होना

Q.86 सही क्रिया-विशेषण का चयन कर वाक्य को पूर्ण कीजिए। अभी बारिश हो रही थी .....धूप निकल आयी ।

(1) मन से
(2) भूल से
(3) अचानक ✔
(4) चुपके से

Q.87 निम्न में से 'कहाँ राजा भोज कहाँ गंगू तेली' लोकोक्तिका सही अर्थ कौन सा है?

(1) उच्च और साधारण की तुलना कैसी ✔
(2) शरीर है तो कष्ट भी रहेगा
(3) दूर से चीज अच्छी लगती है
(4) शत्रु का उपकार करना

Q.88 निम्नलिखित वाक्य के रिक्त स्थान में रीतिवाचक क्रिया-विशेषण शब्द का प्रयोग करें - 'बस देर से मिली वह कार्यालय समय से नहीं पहुँचा।'

(1) मत
(2) इसलिए ✔
(3) केवल
(4) आगे

Q.89 मन और बुद्धि की सभी शक्तियों का संचय परमावश्यक था ।
उपर्युक्त रेखांकित शब्द का पर्यायवाची क्या होगा ?

(1) विस्तार
(2) ग्रहण
(3) संकलन ✔
(4) संचार

Q.90 निम्नांकित विकल्पों में से उचित कारक चिन्ह का चयन करके वाक्य पूर्ण करें- बीती बातों को चिंता..... विषय बनाकर याद रखने..... आवश्यकता नहीं है।

(1) की, का
(2) का, की ✔
(3) ने , से
(4) के, का

Q.91 दिए गए वाक्य में उचित क्रिया शब्द का चयन करके रिक्त स्थान की पूर्ति करें - दीक्षांत समारोह में मंच पर कदम रखते ही छात्र के मन में खुशी की लहर -----गई।

(1) दमक
(2) मचल
(3) चमक
(4) दौड़ ✔

Q.92 निम्न में से 'रहे महमूद के अंडा देवे मसूद के' लोकोक्तिका सही अर्थ कौन-सा है ?

(1) अयोग्य व्यक्ति का चालाक होना
(2) खाना किसी का, काम किसी का ✔
(3) दूसरों के लिए मर मिटना
(4) विपत्ति अकेले नहीं आती

Q.93 निम्नलिखित मुहावरे का अर्थ बताएं - 'आँख का काजल'

(1) अत्यंत प्रिय ✔
(2) इशारा करना
(3) सामने ताकना
(4) झपकी आना

Q.94 निम्नलिखित विकल्पों में से कौन-सा वाक्य क्रम सही है?

(1) आकर चला गया एक मेहमान कल।
(2) एक मेहमान कल आकर चला गया। ✔
(3) मेहमान कल आकर चला गया एक।
(4) चला गया एक मेहमान कल आकर।

Q.95 निम्नलिखित वाक्य को उचित कारक चिह्न से पूर्ण करें।
'मोहन _____ मुर्गियाँ रोज़ अंडे देती हैं ।'

(1) का
(2) से
(3) के
(4) की ✔

Q.96

निम्नलिखित गद्यांश को ध्यानपूर्वक पढ़कर पूछे गये प्रश्नों के सही उत्तर दीजिए।
सहयोग की भावना मानवीय संबंधों का प्राणसूत्र है जो व्यक्तिगत सीमाओं को सामूहिक ऊर्जा में रूपांतरित करती है।
यह न केवल संघर्षों का अंत करती है बल्कि रचनात्मकता को भी पोषित करती है। स्वार्थी युग में सहयोग ही समाज को विघटन से बचाता है तथा समृद्धि का आधार बनाता है। प्रकृति में सहयोग सर्वत्र विद्यमान है चींटियाँ सामूहिक भोजन संग्रह करती हैं जबकि पक्षी झुंड में प्रवास करते हैं। मानव इतिहास में सहयोग ने चमत्कार रचे हैं। भगत सिंह जैसे क्रांतिकारियों का सहयोग स्वतंत्रता को गति प्रदान की। वैज्ञानिक अनुसंधान में अंतरराष्ट्रीय सहयोग ने चंद्रयान जैसी उपलब्धियाँ हासिल कीं। खेलक्षेत्र में खिलाड़ियों का आपसी सहयोग ही विजय का मंत्र बनता है। ग्रामीण अर्थव्यवस्था में सहकारी समितियाँ किसानों को सशक्त बनाती हैं। सहयोग विविध संस्कृतियों को एक मंच पर लाता है तथा वैश्विक शांति सुनिश्चित करता है। संयुक्त राष्ट्र जैसे संगठन सहयोग पर ही आधारित हैं। शिक्षा में गुरु-शिष्य परंपरा सहयोग का प्रतीक है। आपदा काल में पड़ोसी सहयोग जीवनदायी सिद्ध होता है। अंततः सहयोग की भावना ही सच्ची शक्ति है जो व्यक्ति को महान बनाती है तथा मानवजाति को एक परिवार के रूप में एकीकृत करती है।

सहयोग की भावना को गद्यांश में क्या कहा गया है?

(1) व्यक्तिगत शक्ति का स्रोत
(2) स्वार्थ का आधार
(3) **मानवीय संबंधों का प्राणसूत्र ✔**
(4) संघर्ष का कारण

Q.97

निम्नलिखित गद्यांश को ध्यानपूर्वक पढ़कर पूछे गये प्रश्नों के सही उत्तर दीजिए।
सहयोग की भावना मानवीय संबंधों का प्राणसूत्र है जो व्यक्तिगत सीमाओं को सामूहिक ऊर्जा में रूपांतरित करती है।
यह न केवल संघर्षों का अंत करती है बल्कि रचनात्मकता को भी पोषित करती है। स्वार्थी युग में सहयोग ही समाज को विघटन से बचाता है तथा समृद्धि का आधार बनाता है। प्रकृति में सहयोग सर्वत्र विद्यमान है चींटियाँ सामूहिक भोजन संग्रह करती हैं जबकि पक्षी झुंड में प्रवास करते हैं। मानव इतिहास में सहयोग ने चमत्कार रचे हैं। भगत सिंह जैसे क्रांतिकारियों का सहयोग स्वतंत्रता को गति प्रदान की। वैज्ञानिक अनुसंधान में अंतरराष्ट्रीय सहयोग ने चंद्रयान जैसी उपलब्धियाँ हासिल कीं। खेलक्षेत्र में खिलाड़ियों का आपसी सहयोग ही विजय का मंत्र बनता है। ग्रामीण अर्थव्यवस्था में सहकारी समितियाँ किसानों को सशक्त बनाती हैं। सहयोग विविध संस्कृतियों को एक मंच पर लाता है तथा वैश्विक शांति सुनिश्चित करता है। संयुक्त राष्ट्र जैसे संगठन सहयोग पर ही आधारित हैं। शिक्षा में गुरु-शिष्य परंपरा सहयोग का प्रतीक है। आपदा काल में पड़ोसी सहयोग जीवनदायी सिद्ध होता है। अंततः सहयोग की भावना ही सच्ची शक्ति है जो व्यक्ति को महान बनाती है तथा मानवजाति को एक परिवार के रूप में एकीकृत करती है।

स्वार्थी युग में सहयोग समाज को किससे बचाता है?

(1) **विघटन से ✔**
(2) एकता से
(3) प्रगति से
(4) समृद्धि से

Q.98

निम्नलिखित गद्यांश को ध्यानपूर्वक पढ़कर पूछे गये प्रश्नों के सही उत्तर दीजिए।
सहयोग की भावना मानवीय संबंधों का प्राणसूत्र है जो व्यक्तिगत सीमाओं को सामूहिक ऊर्जा में रूपांतरित करती है।
यह न केवल संघर्षों का अंत करती है बल्कि रचनात्मकता को भी पोषित करती है। स्वार्थी युग में सहयोग ही समाज को विघटन से बचाता है तथा समृद्धि का आधार बनाता है। प्रकृति में सहयोग सर्वत्र विद्यमान है चींटियाँ सामूहिक भोजन संग्रह करती हैं जबकि पक्षी झुंड में प्रवास करते हैं। मानव इतिहास में सहयोग ने चमत्कार रचे हैं। भगत सिंह जैसे क्रांतिकारियों का सहयोग स्वतंत्रता को गति प्रदान की। वैज्ञानिक अनुसंधान में अंतरराष्ट्रीय सहयोग ने चंद्रयान जैसी उपलब्धियाँ हासिल कीं। खेलक्षेत्र में खिलाड़ियों का आपसी सहयोग ही विजय का मंत्र बनता है। ग्रामीण अर्थव्यवस्था में सहकारी समितियाँ किसानों को सशक्त बनाती हैं। सहयोग विविध संस्कृतियों को एक मंच पर लाता है तथा वैश्विक शांति सुनिश्चित करता है। संयुक्त राष्ट्र जैसे संगठन सहयोग पर ही आधारित हैं। शिक्षा में गुरु-शिष्य परंपरा सहयोग का प्रतीक है। आपदा काल में पड़ोसी सहयोग जीवनदायी सिद्ध होता है। अंततः सहयोग की भावना ही सच्ची शक्ति है जो व्यक्ति को महान बनाती है तथा मानवजाति को एक परिवार के रूप में एकीकृत करती है।

खेलक्षेत्र में सहयोग को क्या कहा गया है?

(1) विजय का मंत्र ✔
(2) हार का कारण
(3) व्यक्तिगत प्रयास
(4) प्रतिस्पर्धा का अंत

Q.99

निम्नलिखित गद्यांश को ध्यानपूर्वक पढ़कर पूछे गये प्रश्नों के सही उत्तर दीजिए।
सहयोग की भावना मानवीय संबंधों का प्राणसूत्र है जो व्यक्तिगत सीमाओं को सामूहिक ऊर्जा में रूपांतरित करती है।
यह न केवल संघर्षों का अंत करती है बल्कि रचनात्मकता को भी पोषित करती है। स्वार्थी युग में सहयोग ही समाज को विघटन से बचाता है तथा समृद्धि का आधार बनाता है। प्रकृति में सहयोग सर्वत्र विद्यमान है चींटियाँ सामूहिक भोजन संग्रह करती हैं जबकि पक्षी झुंड में प्रवास करते हैं। मानव इतिहास में सहयोग ने चमत्कार रचे हैं। भगत सिंह जैसे क्रांतिकारियों का सहयोग स्वतंत्रता को गति प्रदान की। वैज्ञानिक अनुसंधान में अंतरराष्ट्रीय सहयोग ने चंद्रयान जैसी उपलब्धियाँ हासिल कीं। खेलक्षेत्र में खिलाड़ियों का आपसी सहयोग ही विजय का मंत्र बनता है। ग्रामीण अर्थव्यवस्था में सहकारी समितियाँ किसानों को सशक्त बनाती हैं। सहयोग विविध संस्कृतियों को एक मंच पर लाता है तथा वैश्विक शांति सुनिश्चित करता है। संयुक्त राष्ट्र जैसे संगठन सहयोग पर ही आधारित हैं। शिक्षा में गुरु-शिष्य परंपरा सहयोग का प्रतीक है। आपदा काल में पड़ोसी सहयोग जीवनदायी सिद्ध होता है। अंततः सहयोग की भावना ही सच्ची शक्ति है जो व्यक्ति को महान बनाती है तथा मानवजाति को एक परिवार के रूप में एकीकृत करती है।

ग्रामीण अर्थव्यवस्था में सहकारी समितियाँ किसको सशक्त बनाती हैं?

(1) किसानों को ✔
(2) अधिकारियों को
(3) मजदूरों को
(4) व्यापारियों को

Q.100

निम्नलिखित गद्यांश को ध्यानपूर्वक पढ़कर पूछे गये प्रश्नों के सही उत्तर दीजिए।
सहयोग की भावना मानवीय संबंधों का प्राणसूत्र है जो व्यक्तिगत सीमाओं को सामूहिक ऊर्जा में रूपांतरित करती है। यह न केवल संघर्षों का अंत करती है बल्कि रचनात्मकता को भी पोषित करती है। स्वार्थी युग में सहयोग ही समाज को विघटन से बचाता है तथा समृद्धि का आधार बनाता है। प्रकृति में सहयोग सर्वत्र विद्यमान है चींटियाँ सामूहिक भोजन संग्रह करती हैं जबकि पक्षी झुंड में प्रवास करते हैं। मानव इतिहास में सहयोग ने चमत्कार रचे हैं। भगत सिंह जैसे क्रांतिकारियों का सहयोग स्वतंत्रता को गति प्रदान की। वैज्ञानिक अनुसंधान में अंतरराष्ट्रीय सहयोग ने चंद्रयान जैसी उपलब्धियाँ हासिल कीं। खेलक्षेत्र में खिलाड़ियों का आपसी सहयोग ही विजय का मंत्र बनता है। ग्रामीण अर्थव्यवस्था में सहकारी समितियाँ किसानों को सशक्त बनाती हैं। सहयोग विविध संस्कृतियों को एक मंच पर लाता है तथा वैश्विक शांति सुनिश्चित करता है। संयुक्त राष्ट्र जैसे संगठन सहयोग पर ही आधारित हैं। शिक्षा में गुरु-शिष्य परंपरा सहयोग का प्रतीक है। आपदा काल में पड़ोसी सहयोग जीवनदायी सिद्ध होता है। अंततः सहयोग की भावना ही सच्ची शक्ति है जो व्यक्ति को महान बनाती है तथा मानवजाति को एक परिवार के रूप में एकीकृत करती है।

गद्यांश के अनुसार सहयोग की भावना क्या है?

(1) सच्ची शक्ति ✔
(2) व्यक्तिगत शक्ति
(3) नकली शक्ति
(4) क्षणिक शक्ति

Assistant Teacher (Primary) – PRT

Q.101 Which of the following environmental factors does not affect the personality of a child?
निम्नलिखित में से कौन-सा पर्यावरणीय कारक बच्चे के व्यक्तित्व को प्रभावित नहीं करता है?

(1) School environment / विद्यालय का वातावरण
(2) Family / परिवार
(3) Peer group / साथी समूह
(4) Blood group / रक्त समूह ✔

Q.102 If a child can walk upstairs with assistance and stack two to three cubes, the child is likely between which ages?
यदि कोई बच्चा सहायता से सीढ़ियाँ चढ़ सकता है और दो से तीन घनों को एक के ऊपर एक रख सकता है, तो बच्चे की आयु संभवतः किसके बीच है?

(1) 6-8 months / 6-8 माह
(2) 3-5 months / 3-5 माह
(3) 15-18 months / 15-18 माह ✔
(4) 2-3 years / 2-3 वर्ष

Q.103 Which Constitutional Amendment in India made the Right to Education a fundamental right for children aged 6 to 14 years?
भारत में किस संविधान संशोधन ने 6 से 14 वर्ष की आयु के बच्चों के लिए शिक्षा के अधिकार को मौलिक अधिकार बनाया?

(1) 86th Amendment Act, 2002 / 86वाँ संशोधन अधिनियम, 2002 ✔
(2) 73rd Amendment Act, 1992 / 73वाँ संशोधन अधिनियम, 1992
(3) 44th Amendment Act, 1978 / 44वाँ संशोधन अधिनियम, 1978
(4) 42nd Amendment Act, 1976 / 42वाँ संशोधन अधिनियम, 1976

Q.104 A child initially displays a difficult temperament but gradually becomes more sociable and resilient after forming a secure bond with a caregiver. Which personality characteristic does this developmental change best represent?

एक बच्चा प्रारंभ में कठिन स्वभाव प्रदर्शित करता है, परंतु देखभालकर्ता के साथ सुरक्षित बंधन बनने के बाद धीरे-धीरे अधिक मिलनसार और लचीला (प्रत्यास्थ) बन जाता है। यह विकासात्मक परिवर्तन व्यक्तित्व की किस विशेषता को सबसे अच्छी तरह दर्शाता है?

(1) Integration / एकीकरण
(2) **Dynamic / गतिशील ✔**
(3) Consistency / संगति
(4) Uniqueness / विशिष्टता

Q.105 Which level of moral reasoning is associated with concern for law, order, and maintaining a stable social system?

नैतिक तर्क का कौन-सा स्तर कानून, व्यवस्था और एक स्थिर सामाजिक व्यवस्था बनाए रखने की चिंता से संबंधित है?

(1) **Conventional level / पारंपरिक स्तर ✔**
(2) Postconventional level / उत्तर-पारंपरिक स्तर
(3) Punishment-obedience level / दंड-आज्ञापालन स्तर
(4) Preconventional level / पूर्व-पारंपरिक स्तर

Q.106 A school implements a new curriculum unit focusing on resolving disputes non-violently and appreciating cultural diversity. According to peace education objectives, what is the primary anticipated impact on students?

एक विद्यालय विवादों को अहिंसक तरीके से सुलझाने और सांस्कृतिक विविधता की सराहना करने पर केंद्रित एक नई पाठ्यचर्या इकाई लागू करता है। शांति शिक्षा के उद्देश्यों के अनुसार, विद्यार्थियों पर इसका प्राथमिक अपेक्षित प्रभाव क्या है?

(1) Improved memorization of historical dates / ऐतिहासिक तिथियों को याद रखने में सुधार
(2) Mastery of complex mathematical concepts / जटिल गणितीय अवधारणाओं पर निपुणता
(3) Increased participation in sports activities / खेल गतिविधियों में भागीदारी में वृद्धि
(4) **Development of empathy and cooperation / सहानुभूति और सहयोग का विकास ✔**

Q.107 Which of the following is considered an environmental factor affecting personality development?

निम्नलिखित में से किसे व्यक्तित्व विकास को प्रभावित करने वाला पर्यावरणीय कारक माना जाता है?

(1) **Family background / पारिवारिक पृष्ठभूमि ✔**
(2) Eye color / आँखों का रंग
(3) Height / लंबाई
(4) Blood type / रक्त प्रकार

Q.108 In the context of contemporary Indian society, which strategy best promotes national integration through school education programs that emphasize shared cultural values and collaborative projects among students from diverse backgrounds?

समकालीन भारतीय समाज के संदर्भ में, विविध पृष्ठभूमियों के विद्यार्थियों के बीच साझा सांस्कृतिक मूल्यों और सहयोगात्मक परियोजनाओं पर बल देने वाले विद्यालयी शिक्षा कार्यक्रमों के माध्यम से कौन-सी रणनीति राष्ट्रीय एकता को सबसे अधिक बढ़ावा देती है?

(1) Hosting competitions based on regional languages / क्षेत्रीय भाषाओं पर आधारित प्रतियोगिताओं का आयोजन करना
(2) Focusing solely on textbook memorization / केवल पाठ्यपुस्तक को रटने पर ध्यान केंद्रित करना
(3) Arranging separate regional classes for students / विद्यार्थियों के लिए अलग-अलग क्षेत्रीय कक्षाओं की व्यवस्था करना
(4) **Organizing intercultural exchange programs in schools / विद्यालयों में अंतर-सांस्कृतिक आदान-प्रदान कार्यक्रमों का आयोजन करना ✔**

Q.109 Which of the following options best illustrates gender discrimination in contemporary Indian society?
निम्नलिखित में से कौन-सा विकल्प समकालीन भारतीय समाज में लैंगिक भेदभाव को सबसे अच्छी तरह दर्शाता है?

(1) Encouraging women to participate in politics / महिलाओं को राजनीति में भाग लेने के लिए प्रोत्साहित करना
(2) Offering maternity and paternity leave equally / मातृत्व और पितृत्व अवकाश समान रूप से प्रदान करना
(3) Providing equal access to education for all genders / सभी लिंगों के लिए शिक्षा तक समान पहुँच प्रदान करना
(4) **Unequal pay for men and women doing the same job / एक ही कार्य करने वाले पुरुषों और महिलाओं को असमान वेतन ✔**

Q.110 In the context of socialization, how does the family primarily contribute to the learner's development within society?
समाजीकरण के संदर्भ में, परिवार समाज में शिक्षार्थी के विकास में मुख्य रूप से किस प्रकार योगदान देता है?

(1) **By instilling foundational beliefs, customs and traditions from an early age / प्रारंभिक आयु से ही मूलभूत मान्यताओं, रीति-रिवाजों और परंपराओं को आत्मसात कराकर ✔**
(2) By introducing learners to formal subject knowledge / शिक्षार्थियों को औपचारिक विषय ज्ञान से परिचित कराकर
(3) By promoting new technological skills and encouraging peer discussions / नए तकनीकी कौशलों को बढ़ावा देकर और साथियों के साथ चर्चा को प्रोत्साहित करके
(4) By facilitating participation in extra-curricular activities / पाठ्येतर गतिविधियों में भागीदारी को सुगम बनाकर

Q.111 An inspector finds that a secondary school is using outdated, biased textbooks and offers guidance on selecting new materials. This advisory action aligns with which role outlined for education inspectors in the Mudaliar Commission's report?
एक निरीक्षक पाता है कि एक माध्यमिक विद्यालय पुरानी, पक्षपातपूर्ण पाठ्यपुस्तकों का उपयोग कर रहा है और वह नई सामग्री के चयन पर मार्गदर्शन देता है। यह परामर्शी कार्य मुदालियर आयोग की रिपोर्ट में शिक्षा निरीक्षकों के लिए बताई गई किस भूमिका के अनुरूप है?

(1) Solely punitive supervision / केवल दंडात्मक पर्यवेक्षण
(2) Limiting inspector visits to urban schools / निरीक्षकों के दौरों को शहरी विद्यालयों तक सीमित करना
(3) Focusing only on administrative audits / केवल प्रशासनिक लेखा-परीक्षा पर ध्यान केंद्रित करना
(4) **Advisory and supportive role for inspectors / निरीक्षकों की परामर्शी और सहायक भूमिका ✔**

Q.112 If a curriculum aims to prepare students for both global citizenship and national responsibilities, which guiding principle is most relevant?
यदि किसी पाठ्यचर्या का उद्देश्य विद्यार्थियों को वैश्विक नागरिकता और राष्ट्रीय उत्तरदायित्वों, दोनों के लिए तैयार करना है, तो कौन-सा मार्गदर्शक सिद्धांत सबसे अधिक प्रासंगिक है?

(1) **Integration / एकीकरण ✔**
(2) Uniformity / एकरूपता
(3) Isolation / पृथक्करण
(4) Segmentation / खंडीकरण

Q.113 During which stage of moral development do children typically start to value laws and authority as important for maintaining social order?
नैतिक विकास के किस चरण के दौरान बच्चे सामान्यतः सामाजिक व्यवस्था बनाए रखने के लिए कानूनों और प्राधिकार को महत्वपूर्ण मानने लगते हैं?

(1) Pre-conventional stage / पूर्व-पारंपरिक चरण
(2) Intuitive-projective stage / अंतर्ज्ञानात्मक-प्रक्षेपी चरण
(3) Post-conventional stage / उत्तर-पारंपरिक चरण
(4) **Conventional stage / पारंपरिक चरण ✔**

Q.114 When examining the principle that development occurs from the center of the body outward, which term best describes this pattern in a child's growth?

इस सिद्धांत की जाँच करते समय कि विकास शरीर के केंद्र से बाहर की ओर होता है, कौन-सा शब्द बच्चे की वृद्धि में इस प्रतिरूप का सबसे अच्छा वर्णन करता है?

(1) Sequential development pattern / क्रमिक विकास प्रतिरूप

(2) Cephalocaudal development pattern / शिरःपुच्छीय (सेफलोकॉडल) विकास प्रतिरूप

(3) **Proximodistal development pattern / समीप-दूराभिमुख (प्रॉक्सिमोडिस्टल) विकास प्रतिरूप ✔**

(4) Linear development pattern / रैखिक विकास प्रतिरूप

Q.115 A government implements universal adult franchise, guaranteeing 'one man one vote' (Political Equality), but fails to address deep-rooted historical land distribution disparities. This scenario exemplifies a danger to political democracy, as articulated by Dr. B.R. Ambedkar, due to the persistence of:

एक सरकार 'एक व्यक्ति एक वोट' (राजनीतिक समानता) की गारंटी देते हुए सार्वभौमिक वयस्क मताधिकार लागू करती है, परंतु गहराई तक जड़ें जमाए ऐतिहासिक भूमि वितरण की असमानताओं को दूर करने में विफल रहती है। डॉ. बी.आर. अंबेडकर द्वारा व्यक्त किए गए अनुसार, यह परिदृश्य किसकी निरंतरता के कारण राजनीतिक लोकतंत्र के लिए खतरे का उदाहरण है?

(1) Non-justifiable directive principles / गैर-न्यायोचित नीति निदेशक सिद्धांत

(2) Weak federal list structure / कमजोर संघीय सूची संरचना

(3) **Socio-economic graded inequality / सामाजिक-आर्थिक श्रेणीबद्ध असमानता ✔**

(4) Legislative political apathy / विधायी राजनीतिक उदासीनता

Q.116 What is the main objective of Universalisation of Elementary Education (UEE) under the RTE Act 2009?

RTE अधिनियम 2009 के तहत प्रारंभिक शिक्षा के सार्वभौमीकरण (UEE)
का मुख्य उद्देश्य क्या है?

(1) To focus only on urban children for education / शिक्षा के लिए केवल शहरी बच्चों पर ध्यान केंद्रित करना

(2) To introduce competitive exams at elementary level / प्रारंभिक स्तर पर प्रतियोगी परीक्षाएँ शुरू करना

(3) **To provide free and compulsory education to children aged 6 to 14 years / 6 से 14 वर्ष की आयु के बच्चों को निःशुल्क और अनिवार्य शिक्षा प्रदान करना ✔**

(4) To make elementary education private and paid / प्रारंभिक शिक्षा को निजी और सशुल्क बनाना

Q.117 During childhood, a key principle stating that development moves from the head downward is _____.

बाल्यावस्था के दौरान, विकास के सिर से नीचे की ओर बढ़ने को बताने वाला एक प्रमुख सिद्धांत _____ है।

(1) Proximity rule / निकटता नियम

(2) Sequential order / क्रमिक क्रम

(3) **Cephalocaudal / शिरःपुच्छीय (सेफलोकॉडल) ✔**

(4) Uniform pattern / एकसमान प्रतिरूप

Q.118 Education helps promote peaceful coexistence among nations mainly by developing:

शिक्षा राष्ट्रों के बीच शांतिपूर्ण सह-अस्तित्व को मुख्य रूप से किसका विकास करके बढ़ावा देने में सहायता करती है?

(1) Strict national loyalty placed above all / सर्वोपरि रखी गई कठोर राष्ट्रीय निष्ठा

(2) Uniform political ideologies across the world / संपूर्ण विश्व में एकसमान राजनीतिक विचारधाराएँ

(3) **Attitudes of cooperation and mutual understanding / सहयोग और पारस्परिक समझ की अभिवृत्तियाँ ✔**

(4) Competitive economic practices among nations / राष्ट्रों के बीच प्रतिस्पर्धी आर्थिक प्रथाएँ

Q.119 A state government refuses to fund elementary education for children aged 6 to 14. Which constitutional provision is being violated?

एक राज्य सरकार 6 से 14 वर्ष की आयु के बच्चों की प्रारंभिक शिक्षा के लिए धन देने से इनकार करती है। किस संवैधानिक प्रावधान का उल्लंघन हो रहा है?

(1) Article 45 / अनुच्छेद 45

(2) Article 19 / अनुच्छेद 19

(3) Article 30 / अनुच्छेद 30

(4) **Article 21A / अनुच्छेद 21A ✔**

Q.120 The Preamble to the Indian Constitution declares India to be a:

भारतीय संविधान की उद्देशिका भारत को घोषित करती है:

(1) Sovereign, Federal, Secular, Democratic Republic / संपूर्ण प्रभुत्व-संपन्न, संघीय, पंथनिरपेक्ष, लोकतंत्रात्मक गणराज्य

(2) Federal, Socialist, Secular, Democratic Republic / संघीय, समाजवादी, पंथनिरपेक्ष, लोकतंत्रात्मक गणराज्य

(3) Socialist, Secular, Federal, Democratic Republic / समाजवादी, पंथनिरपेक्ष, संघीय, लोकतंत्रात्मक गणराज्य

(4) **Sovereign, Socialist, Secular, Democratic Republic / संपूर्ण प्रभुत्व-संपन्न, समाजवादी, पंथनिरपेक्ष, लोकतंत्रात्मक गणराज्य ✔**

Q.121 When learners infer meanings of unfamiliar words from a poem without dictionary use, the literary text is functioning mainly as:

जब शिक्षार्थी शब्दकोश का उपयोग किए बिना किसी कविता से अपरिचित शब्दों के अर्थ का अनुमान लगाते हैं, तो साहित्यिक पाठ मुख्य रूप से किस रूप में कार्य कर रहा होता है?

(1) **Contextualized linguistic input / संदर्भित भाषाई निवेश (इनपुट) ✔**

(2) A source of fixed vocabulary lists / निश्चित शब्दावली सूचियों का स्रोत

(3) An exercise in translation accuracy / अनुवाद की शुद्धता का अभ्यास

(4) A model for prescriptive grammar / निर्देशात्मक व्याकरण का मॉडल

Q.122 Which type of peer tutoring involves older students helping younger students?

किस प्रकार के सहपाठी शिक्षण (पीयर ट्यूटरिंग) में बड़े विद्यार्थी छोटे विद्यार्थियों की सहायता करते हैं?

(1) **Cross-age tutoring / अंतर-आयु शिक्षण (क्रॉस-एज ट्यूटरिंग) ✔**

(2) Reciprocal peer tutoring / पारस्परिक सहपाठी शिक्षण

(3) Same-age tutoring / समान-आयु शिक्षण

(4) Group tutoring / समूह शिक्षण

Q.123 What analytical distinction justifies transitioning from simple daily diary entries to a formal reflective journal for deeper self-understanding?

गहन आत्म-बोध के लिए साधारण दैनिक डायरी प्रविष्टियों से औपचारिक चिंतनशील पत्रिका (रिफ्लेक्टिव जर्नल) की ओर जाने को कौन-सा विश्लेषणात्मक अंतर उचित ठहराता है?

(1) Avoids emotional responses / भावनात्मक प्रतिक्रियाओं से बचाता है

(2) Increases quantity of writing / लेखन की मात्रा बढ़ाता है

(3) Simplifies recording daily events / दैनिक घटनाओं को दर्ज करना सरल बनाता है

(4) **Enhances critical thought clarity / आलोचनात्मक चिंतन की स्पष्टता बढ़ाता है ✔**

Q.124 A school leader is designing a language policy to foster early literacy in a region where children speak different mother tongues at home. Which policy best reflects the scope of multilingualism in education?

एक विद्यालय प्रमुख ऐसे क्षेत्र में प्रारंभिक साक्षरता को बढ़ावा देने के लिए भाषा नीति तैयार कर रहा है, जहाँ बच्चे घर पर अलग-अलग मातृभाषाएँ बोलते हैं। कौन-सी नीति शिक्षा में बहुभाषिकता के दायरे को सबसे अच्छी तरह दर्शाती है?

(1) Promote additive bilingualism in classroom instruction / कक्षा शिक्षण में योगात्मक द्विभाषिकता को बढ़ावा देना ✔

(2) Enforce rapid transition to the dominant language / प्रमुख भाषा की ओर तीव्र परिवर्तन को लागू करना

(3) Discourage use of home languages in school / विद्यालय में घरेलू भाषाओं के उपयोग को हतोत्साहित करना

(4) Focus only on monolingual assessment / केवल एकभाषी आकलन पर ध्यान केंद्रित करना

Q.125 When guiding students to observe a local festival as part of cultural studies, what should the teacher emphasize to maximize learning?

सांस्कृतिक अध्ययन के भाग के रूप में विद्यार्थियों को किसी स्थानीय त्योहार का अवलोकन करने के लिए मार्गदर्शन देते समय, अधिकतम अधिगम के लिए शिक्षक को किस पर बल देना चाहिए?

(1) Focusing only on the festival's schedule. / केवल त्योहार की समय-सारणी पर ध्यान केंद्रित करना।

(2) Encouraging to note rituals with meanings. / अनुष्ठानों को उनके अर्थ सहित नोट करने के लिए प्रोत्साहित करना। ✔

(3) Assigning reading about unrelated topics. / असंबंधित विषयों पर पठन कार्य देना।

(4) Teaching only through classroom lectures. / केवल कक्षा व्याख्यानों के माध्यम से पढ़ाना।

Q.126 What is the key benefit of multilingualism in early education?

प्रारंभिक शिक्षा में बहुभाषिकता का प्रमुख लाभ क्या है?

(1) It promotes cognitive flexibility in children. / यह बच्चों में संज्ञानात्मक लचीलेपन को बढ़ावा देती है। ✔

(2) It encourages learning only one language. / यह केवल एक भाषा सीखने को प्रोत्साहित करती है।

(3) It limits social interaction. / यह सामाजिक अंतःक्रिया को सीमित करती है।

(4) It increases physical and emotional strength. / यह शारीरिक और भावनात्मक शक्ति को बढ़ाती है।

Q.127 A science teacher first demonstrates a chemical reaction before asking students to perform the experiment themselves. Which maxim is illustrated here?

एक विज्ञान शिक्षक विद्यार्थियों को स्वयं प्रयोग करने के लिए कहने से पहले एक रासायनिक अभिक्रिया का प्रदर्शन करता है। यहाँ किस शिक्षण सूत्र को दर्शाया गया है?

(1) Focusing only on theoretical discussion / केवल सैद्धांतिक चर्चा पर ध्यान केंद्रित करना

(2) Proceeding from concrete to abstract / मूर्त से अमूर्त की ओर बढ़ना ✔

(3) Starting with abstract to concrete / अमूर्त से मूर्त की ओर आरंभ करना

(4) Assigning only textbook reading / केवल पाठ्यपुस्तक पठन का कार्य देना

Q.128 Which of the following best describes how celebrating an iconic cultural figure can contribute to an individual's understanding of self in a contemporary context?

निम्नलिखित में से कौन-सा कथन सबसे अच्छी तरह वर्णन करता है कि किसी प्रतिष्ठित सांस्कृतिक व्यक्तित्व का उत्सव मनाना समकालीन संदर्भ में किसी व्यक्ति की आत्म-समझ में किस प्रकार योगदान दे सकता है?

(1) Requires adopting the figure's lifestyle without reflection. / बिना चिंतन के उस व्यक्तित्व की जीवनशैली को अपनाने की आवश्यकता होती है।

(2) Builds personal values via the figure's ideals and deeds. / उस व्यक्तित्व के आदर्शों और कार्यों के माध्यम से व्यक्तिगत मूल्यों का निर्माण करता है। ✔

(3) Centers solely on the figure's historical significance only. / केवल उस व्यक्तित्व के ऐतिहासिक महत्व पर ही केंद्रित होता है।

(4) Demands rote learning of the figure's life history facts. / उस व्यक्तित्व के जीवन इतिहास के तथ्यों को रटने की माँग करता है।

Q.129 What role do cultural icons play in bridging diverse communities today?

आज विविध समुदायों को जोड़ने में सांस्कृतिक प्रतीक (आइकन) क्या भूमिका निभाते हैं?

(1) Promoting exclusive narratives only / केवल अनन्य आख्यानों को बढ़ावा देना

(2) Reflecting marginalized voices and stories / हाशिए पर रहे लोगों की आवाज़ों और कहानियों को प्रतिबिंबित करना ✔

(3) Minimizing discussions on identity / पहचान से संबंधित चर्चाओं को कम करना

(4) Highlighting divisions among cultural groups / सांस्कृतिक समूहों के बीच विभाजनों को उजागर करना

Q.130 Which statement accurately reflects the nature of pedagogy in the classroom?

कौन-सा कथन कक्षा में शिक्षाशास्त्र की प्रकृति को सटीक रूप से दर्शाता है?

(1) Pedagogy is only about delivering content through lectures efficiently. / शिक्षाशास्त्र केवल व्याख्यानों के माध्यम से विषय-वस्तु को कुशलतापूर्वक प्रस्तुत करने से संबंधित है।

(2) Pedagogy involves both teacher strategies and student participation actively. / शिक्षाशास्त्र में शिक्षक की रणनीतियाँ और विद्यार्थियों की सक्रिय भागीदारी, दोनों शामिल हैं। ✔

(3) Pedagogy means following textbooks strictly without any adaptation needed. / शिक्षाशास्त्र का अर्थ है बिना किसी अनुकूलन के पाठ्यपुस्तकों का कठोरता से पालन करना।

(4) Pedagogy excludes assessment of learning and focuses solely on teaching. / शिक्षाशास्त्र अधिगम के आकलन को शामिल नहीं करता और केवल शिक्षण पर केंद्रित होता है।

Q.131 What is the primary medium of human communication?

मानव संचार का प्राथमिक माध्यम क्या है?

(1) Culture / संस्कृति

(2) Language / भाषा ✔

(3) Society / समाज

(4) Gesture / हाव-भाव

Q.132 How does integrating peer tutoring as a pedagogical practice benefit the overall curriculum in diploma programs?

एक शैक्षणिक पद्धति के रूप में सहपाठी शिक्षण (पीयर ट्यूटरिंग) को एकीकृत करने से डिप्लोमा कार्यक्रमों की समग्र पाठ्यचर्या को किस प्रकार लाभ होता है?

(1) Applies uniform teaching methods to all students. / सभी विद्यार्थियों पर एकसमान शिक्षण विधियाँ लागू करता है।

(2) Minimizes active student participation in class. / कक्षा में विद्यार्थियों की सक्रिय भागीदारी को कम करता है।

(3) Prioritizes teacher-led instruction exclusively. / केवल शिक्षक-नेतृत्व वाले शिक्षण को प्राथमिकता देता है।

(4) Addresses diverse needs via collaborative engagement. / सहयोगात्मक सहभागिता के माध्यम से विविध आवश्यकताओं को पूरा करता है। ✔

Q.133 Which combination correctly matches a system of units with its basic length, mass, and time units?

कौन-सा संयोजन मात्रकों की किसी पद्धति का उसकी लंबाई, द्रव्यमान और समय के मूल मात्रकों के साथ सही मिलान करता है?

(1) FPS: metre, kilogram, second / FPS: मीटर, किलोग्राम, सेकंड

(2) CGS: centimetre, gram, second / CGS: सेंटीमीटर, ग्राम, सेकंड ✔

(3) MKS: foot, pound, second / MKS: फुट, पाउंड, सेकंड

(4) CGS: metre, kilogram, second / CGS: मीटर, किलोग्राम, सेकंड

Q.134 A diploma institute wants to update its curriculum to meet current industry needs. Which step should be prioritized to ensure the new curriculum remains relevant for learners and society?

एक डिप्लोमा संस्थान वर्तमान उद्योग आवश्यकताओं को पूरा करने के लिए अपनी पाठ्यचर्या को अद्यतन करना चाहता है। यह सुनिश्चित करने के लिए कि नई पाठ्यचर्या शिक्षार्थियों और समाज के लिए प्रासंगिक बनी रहे, किस कदम को प्राथमिकता दी जानी चाहिए?

(1) Prioritize updates to assessment methods and grading alone / केवल आकलन विधियों और ग्रेडिंग के अद्यतन को प्राथमिकता देना

(2) Increase course content volume to include additional topics / अतिरिक्त विषयों को शामिल करने के लिए पाठ्यक्रम सामग्री की मात्रा बढ़ाना

(3) Rely solely on previous years' syllabi for new curriculum / नई पाठ्यचर्या के लिए केवल पिछले वर्षों के पाठ्यक्रमों पर निर्भर रहना

(4) Consult stakeholders, experts, educators, and learners for input / सुझावों के लिए हितधारकों, विशेषज्ञों, शिक्षकों और शिक्षार्थियों से परामर्श करना ✔

Q.135 Which term best describes the role of iconic cultural figures in shaping a community's cultural world-view?

किसी समुदाय के सांस्कृतिक विश्व-दृष्टिकोण को आकार देने में प्रतिष्ठित सांस्कृतिक व्यक्तित्वों की भूमिका का सबसे अच्छा वर्णन कौन-सा शब्द करता है?

(1) Cultural agents – they influence values, beliefs, and practices within a society through their work, actions, or public presence. / सांस्कृतिक अभिकर्ता – वे अपने कार्य, कृत्यों या सार्वजनिक उपस्थिति के माध्यम से समाज के भीतर मूल्यों, मान्यताओं और प्रथाओं को प्रभावित करते हैं। ✔

(2) Entertainment personalities – their role is limited to providing amusement without affecting cultural values. / मनोरंजन व्यक्तित्व – उनकी भूमिका सांस्कृतिक मूल्यों को प्रभावित किए बिना केवल मनोरंजन प्रदान करने तक सीमित है।

(3) Passive observers – since iconic figures have little or no influence on the cultural perspectives of the community. / निष्क्रिय पर्यवेक्षक – क्योंकि प्रतिष्ठित व्यक्तित्वों का समुदाय के सांस्कृतिक दृष्टिकोणों पर बहुत कम या कोई प्रभाव नहीं होता है।

(4) Political leaders – because only elected officials determine cultural norms and development. / राजनीतिक नेता – क्योंकि केवल निर्वाचित अधिकारी ही सांस्कृतिक मानदंडों और विकास का निर्धारण करते हैं।

QuickSarkari.com | WhatsApp Channel | Telegram: t.me/quick_sarkari

Q.136 A teacher in a multilingual classroom in Varanasi notices that some children code-mix during playground conversations. To comprehensively assess their language pragmatics, which combination of assessment sources would best provide reliable insights?

वाराणसी में एक बहुभाषी कक्षा का एक शिक्षक देखता है कि कुछ बच्चे खेल के मैदान में बातचीत के दौरान कोड-मिश्रण करते हैं। उनके भाषा व्यावहारिकता (प्रैग्मैटिक्स) का व्यापक आकलन करने के लिए, आकलन स्रोतों का कौन-सा संयोजन सबसे विश्वसनीय जानकारी प्रदान करेगा?

(1) Observation notes and peer feedback forms / अवलोकन टिप्पणियाँ और सहपाठी प्रतिपुष्टि प्रपत्र ✔

(2) Single end-term written exams / एकल सत्रांत लिखित परीक्षाएँ

(3) Only standardized oral reading tests / केवल मानकीकृत मौखिक पठन परीक्षण

(4) Exclusive use of home language logs / केवल घरेलू भाषा लॉग का उपयोग

Q.137 How does Schopenhauer suggest humans can temporarily escape the 'blind will' that drives existence?

शोपेनहावर के अनुसार मनुष्य अस्तित्व को संचालित करने वाली 'अंधी इच्छा' से अस्थायी रूप से कैसे मुक्त हो सकता है?

(1) Through accumulation of material wealth / भौतिक संपत्ति के संचय के माध्यम से

(2) Through aesthetic contemplation of art / कला के सौंदर्यात्मक चिंतन के माध्यम से ✔

(3) Through political participation / राजनीतिक भागीदारी के माध्यम से

(4) Through scientific experimentation / वैज्ञानिक प्रयोग के माध्यम से

Q.138 A teacher introduces a topic by first addressing learners' interests and prior mental readiness and later organizes the content in a logical sequence. This reflects the maxim of:

एक शिक्षक किसी विषय का परिचय पहले शिक्षार्थियों की रुचियों और पूर्व मानसिक तत्परता को ध्यान में रखकर देता है और बाद में विषय-वस्तु को तार्किक क्रम में व्यवस्थित करता है। यह किस शिक्षण सूत्र को दर्शाता है?

(1) Direct to indirect / प्रत्यक्ष से अप्रत्यक्ष

(2) Psychological to logical / मनोवैज्ञानिक से तार्किक ✔

(3) Known to unknown / ज्ञात से अज्ञात

(4) Concrete to abstract / मूर्त से अमूर्त

Q.139 Why might an assessor use both oral storytelling activities and written tasks when evaluating a child's early literacy skills?

किसी बच्चे के प्रारंभिक साक्षरता कौशलों का मूल्यांकन करते समय एक आकलनकर्ता मौखिक कहानी-कथन गतिविधियों और लिखित कार्यों, दोनों का उपयोग क्यों कर सकता है?

(1) Different assessment modes reveal varied language and literacy strengths / आकलन के विभिन्न तरीके भाषा और साक्षरता की विविध क्षमताओं को उजागर करते हैं ✔

(2) Using only one type of activity eliminates all assessment bias / केवल एक प्रकार की गतिविधि का उपयोग करने से आकलन के सभी पूर्वाग्रह समाप्त हो जाते हैं

(3) Oral activities are less significant for learning outcomes / अधिगम परिणामों के लिए मौखिक गतिविधियाँ कम महत्वपूर्ण हैं

(4) Written tasks alone provide the most accurate evaluation evidence / केवल लिखित कार्य ही मूल्यांकन के सबसे सटीक साक्ष्य प्रदान करते हैं

QuickSarkari.com | WhatsApp Channel | Telegram: t.me/quick_sarkari

Q.140 What does the System Approach mainly aim to achieve in curriculum planning?

पाठ्यचर्या नियोजन में प्रणाली उपागम (सिस्टम एप्रोच) का मुख्य उद्देश्य क्या प्राप्त करना है?

(1) Simple textbook based teaching without any modification / बिना किसी संशोधन के साधारण पाठ्यपुस्तक-आधारित शिक्षण

(2) Logical coordination through input process output cycle / निवेश-प्रक्रिया-निर्गत चक्र के माध्यम से तार्किक समन्वय ✔

(3) Teacher centred approach ignoring learner requirements / शिक्षार्थी की आवश्यकताओं की उपेक्षा करने वाला शिक्षक-केंद्रित उपागम

(4) Random decision making about instructional strategies / शिक्षण रणनीतियों के बारे में यादृच्छिक निर्णय लेना

Q.141 A school tracks student attendance, learning outcomes, and teaching quality to improve performance. This represents:

एक विद्यालय प्रदर्शन में सुधार के लिए विद्यार्थियों की उपस्थिति, अधिगम परिणामों और शिक्षण की गुणवत्ता पर नज़र रखता है। यह दर्शाता है:

(1) Educational accountability measures / शैक्षिक जवाबदेही उपाय ✔

(2) Institutional effectiveness metrics / संस्थागत प्रभावशीलता मापदंड

(3) School quality assurance benchmarks / विद्यालय गुणवत्ता आश्वासन मानक

(4) Academic performance indicators / शैक्षणिक प्रदर्शन संकेतक

Q.142 A candidate is preparing a formal report for a recruitment panel. While reviewing the sentence 'The staff has submitted their feedback promptly,'
which revision best demonstrates an understanding of both grammatical correctness and contextual appropriateness for this setting?

एक अभ्यर्थी एक भर्ती पैनल के लिए औपचारिक रिपोर्ट तैयार कर रहा है। वाक्य 'The staff has submitted their feedback promptly' की समीक्षा करते समय, कौन-सा संशोधन इस परिवेश के लिए व्याकरणिक शुद्धता और संदर्भगत उपयुक्तता, दोनों की समझ को सबसे अच्छी तरह प्रदर्शित करता है?

(1) The staff members have submitted their feedback promptly. ✔

(2) The staff have submitted its feedback promptly.

(3) The staff members has submitted their feedback promptly.

(4) The staff has submitted their feedback promptly.

Q.143 A school administrator is designing a program to help students navigate real- life social situations and adapt to changing group dynamics. According to Sternberg's triarchic theory, which type of intelligence should be emphasized in the curriculum to best prepare students for success in their socio-cultural context?

एक विद्यालय प्रशासक विद्यार्थियों को वास्तविक जीवन की सामाजिक परिस्थितियों से निपटने और बदलती समूह गतिशीलता के अनुसार ढलने में सहायता करने के लिए एक कार्यक्रम तैयार कर रहा है। स्टर्नबर्ग के त्रितंत्र सिद्धांत के अनुसार, विद्यार्थियों को उनके सामाजिक-सांस्कृतिक संदर्भ में सफलता के लिए सबसे अच्छी तरह तैयार करने हेतु पाठ्यचर्या में किस प्रकार की बुद्धि पर बल दिया जाना चाहिए?

(1) Practical intelligence should be emphasized in the curriculum to best prepare students for success in their socio-cultural context. / विद्यार्थियों को उनके सामाजिक-सांस्कृतिक संदर्भ में सफलता के लिए सबसे अच्छी तरह तैयार करने हेतु पाठ्यचर्या में व्यावहारिक बुद्धि पर बल दिया जाना चाहिए। ✔

(2) General intelligence should be emphasized in the curriculum to best prepare students for success in their socio-cultural context. / विद्यार्थियों को उनके सामाजिक-सांस्कृतिक संदर्भ में सफलता के लिए सबसे अच्छी तरह तैयार करने हेतु पाठ्यचर्या में सामान्य बुद्धि पर बल दिया जाना चाहिए।

(3) Analytic intelligence should be emphasized in the curriculum to best prepare students for success in their socio-cultural context. / विद्यार्थियों को उनके सामाजिक-सांस्कृतिक संदर्भ में सफलता के लिए सबसे अच्छी तरह तैयार करने हेतु पाठ्यचर्या में विश्लेषणात्मक बुद्धि पर बल दिया जाना चाहिए।

(4) Creative intelligence should be emphasized in the curriculum to best prepare students for success in their socio-cultural context. / विद्यार्थियों को उनके सामाजिक-सांस्कृतिक संदर्भ में सफलता के लिए सबसे अच्छी तरह तैयार करने हेतु पाठ्यचर्या में सृजनात्मक बुद्धि पर बल दिया जाना चाहिए।

Q.144 Which of the following is a basic characteristic of a good educator?

निम्नलिखित में से कौन-सी एक अच्छे शिक्षक की मूलभूत विशेषता है?

(1) Focuses only on exams and ignores students' understanding of concepts / केवल परीक्षाओं पर ध्यान केंद्रित करता है और विद्यार्थियों की अवधारणात्मक समझ की उपेक्षा करता है

(2) Concentrates only on administrative work and school management tasks / केवल प्रशासनिक कार्य और विद्यालय प्रबंधन कार्यों पर ध्यान केंद्रित करता है

(3) Relies entirely on textbooks without engaging students in activities / विद्यार्थियों को गतिविधियों में शामिल किए बिना पूरी तरह पाठ्यपुस्तकों पर निर्भर रहता है

(4) Shows care for students, communicates clearly, and encourages learning actively / विद्यार्थियों की परवाह करता है, स्पष्ट रूप से संवाद करता है और सक्रिय रूप से अधिगम को प्रोत्साहित करता है ✔

Q.145 Students get different results measuring a desk using handspans. What should the teacher highlight next?

बालिश्त (हैंडस्पैन) से एक डेस्क को मापने पर विद्यार्थियों को अलग-अलग परिणाम प्राप्त होते हैं। शिक्षक को आगे किस बात पर प्रकाश डालना चाहिए?

(1) Larger objects cannot be measured / बड़ी वस्तुओं को मापा नहीं जा सकता

(2) Standard units are needed for accurate comparison / सटीक तुलना के लिए मानक इकाइयों की आवश्यकता होती है ✔

(3) Measuring is not required in early classes / प्रारंभिक कक्षाओं में मापन की आवश्यकता नहीं है

(4) Non-standard units always give correct measurements / अमानक इकाइयाँ हमेशा सही माप देती हैं

Q.146 Which statement best describes English as a global language?

कौन-सा कथन वैश्विक भाषा के रूप में अंग्रेजी का सबसे अच्छा वर्णन करता है?

(1) It is the official language used by all countries. / यह सभी देशों द्वारा उपयोग की जाने वाली आधिकारिक भाषा है।

(2) It is the only language spoken across the world. / यह संपूर्ण विश्व में बोली जाने वाली एकमात्र भाषा है।

(3) It is used as a common language in different countries. / इसका उपयोग विभिन्न देशों में एक सामान्य भाषा के रूप में किया जाता है। ✔

(4) It is spoken only within European countries. / यह केवल यूरोपीय देशों में बोली जाती है।

Q.147 Which of the following is a practical example of 'repression' as a defense mechanism in students?

निम्नलिखित में से कौन-सा विद्यार्थियों में रक्षा युक्ति के रूप में 'दमन' का एक व्यावहारिक उदाहरण है?

(1) The unconscious blocking of painful, anxiety-provoking memories / दर्दनाक, चिंता उत्पन्न करने वाली स्मृतियों को अचेतन रूप से अवरुद्ध करना ✔

(2) A student expressing anger openly toward peers after a setback / असफलता के बाद एक विद्यार्थी का साथियों के प्रति खुलकर क्रोध व्यक्त करना

(3) A student explaining poor performance by blaming the difficulty of the test / एक विद्यार्थी का परीक्षा की कठिनाई को दोष देकर अपने खराब प्रदर्शन की व्याख्या करना

(4) A student consciously deciding to ignore feedback from a teacher / एक विद्यार्थी का सचेत रूप से शिक्षक की प्रतिपुष्टि की उपेक्षा करने का निर्णय लेना

Q.148 Imagine you are designing a mathematics lesson for primary children on the properties of rectangles. Which approach would best utilize the experimental and inductive nature of mathematics, according to the described method, and why?

कल्पना कीजिए कि आप प्राथमिक कक्षा के बच्चों के लिए आयतों के गुणों पर एक गणित पाठ तैयार कर रहे हैं। वर्णित विधि के अनुसार, कौन-सा उपागम गणित की प्रायोगिक और आगमनात्मक प्रकृति का सबसे अच्छा उपयोग करेगा, और क्यों?

(1) Explaining the definition of a rectangle to the students before engaging them in activities / विद्यार्थियों को गतिविधियों में शामिल करने से पहले उन्हें आयत की परिभाषा समझाना

(2) Providing a worksheet for independent practice and recall of rectangle properties / आयत के गुणों के स्वतंत्र अभ्यास और स्मरण के लिए एक कार्यपत्रक प्रदान करना

(3) Having students recite and discuss rectangle properties directly from the textbook / विद्यार्थियों से सीधे पाठ्यपुस्तक से आयत के गुणों का पाठ और चर्चा कराना

(4) Facilitating students to measure sides and angles of rectangles to identify common properties / उभयनिष्ठ गुणों की पहचान करने के लिए विद्यार्थियों को आयतों की भुजाओं और कोणों को मापने में सहायता करना ✔

Q.149 A student who blames the teacher for failing an exam instead of accepting poor preparation is using which defence mechanism?

एक विद्यार्थी जो अपनी खराब तैयारी को स्वीकार करने के बजाय परीक्षा में अनुत्तीर्ण होने के लिए शिक्षक को दोष देता है, वह किस रक्षा युक्ति का उपयोग कर रहा है?

(1) Repression / दमन

(2) Rationalization / युक्तिकरण

(3) Sublimation / उदात्तीकरण

(4) Projection / प्रक्षेपण ✔

Q.150 A teacher encourages students to use newly learned words in sentences to make them part of their everyday speech. This activity aims to develop:

एक शिक्षक विद्यार्थियों को नए सीखे गए शब्दों को वाक्यों में प्रयोग करने के लिए प्रोत्साहित करता है ताकि वे उनकी रोज़मर्रा की बोलचाल का हिस्सा बन जाएँ। इस गतिविधि का उद्देश्य किसका विकास करना है?

(1) Receptive vocabulary gained mainly through exposure and recognition / मुख्य रूप से अनावरण और पहचान के माध्यम से प्राप्त ग्रहणशील शब्दावली

(2) Vocabulary knowledge limited to recall of word meanings / शब्दों के अर्थों के स्मरण तक सीमित शब्दावली ज्ञान

(3) Active vocabulary developed through purposeful and meaningful use / उद्देश्यपूर्ण और सार्थक प्रयोग के माध्यम से विकसित सक्रिय शब्दावली ✔

(4) Vocabulary awareness without consistent communicative application / निरंतर संप्रेषणात्मक अनुप्रयोग के बिना शब्दावली जागरूकता

Q.151 In a classroom, a bell rings before lunch every day, and students start feeling hungry when they hear the bell. What type of learning is this an example of?

एक कक्षा में, प्रतिदिन दोपहर के भोजन से पहले एक घंटी बजती है, और विद्यार्थियों को घंटी सुनते ही भूख लगने लगती है। यह किस प्रकार के अधिगम का उदाहरण है?

(1) Classical Conditioning / शास्त्रीय अनुबंधन ✔

(2) Insight Learning / अंतर्दृष्टि अधिगम

(3) Trial and Error / प्रयास और त्रुटि

(4) Operant Conditioning / क्रियाप्रसूत अनुबंधन

Q.152 Which of the following approaches is recommended for effective grammar teaching?

प्रभावी व्याकरण शिक्षण के लिए निम्नलिखित में से कौन-सा उपागम अनुशंसित है?

(1) Teaching grammar in isolation using sentence exercises / वाक्य अभ्यासों का उपयोग करके व्याकरण को अलग से पढ़ाना

(2) Avoiding any real-life communication practice / वास्तविक जीवन के संप्रेषण अभ्यास से बचना

(3) Teaching grammar in context, through discourse, and making it engaging / व्याकरण को संदर्भ में, संवाद (डिस्कोर्स) के माध्यम से पढ़ाना और इसे रोचक बनाना ✔

(4) Focusing on grammatical rule and terminology / व्याकरणिक नियम और शब्दावली पर ध्यान केंद्रित करना

Q.153 Which of the following is a major factor shaping gendered roles in Indian society?

निम्नलिखित में से कौन-सा भारतीय समाज में लैंगिक भूमिकाओं को आकार देने वाला एक प्रमुख कारक है?

(1) Shared norms, traditions, and cultural practices / साझा मानदंड, परंपराएँ और सांस्कृतिक प्रथाएँ ✔

(2) Government policies related to the economy / अर्थव्यवस्था से संबंधित सरकारी नीतियाँ

(3) General weather patterns in a region / किसी क्षेत्र के सामान्य मौसम प्रतिरूप

(4) Individual choices made without clear reasons / स्पष्ट कारणों के बिना किए गए व्यक्तिगत विकल्प

Q.154 Which of the following characteristic does not make a school effective?

निम्नलिखित में से कौन-सी विशेषता किसी विद्यालय को प्रभावी नहीं बनाती है?

(1) Weak organization framework / कमजोर संगठनात्मक ढाँचा ✔

(2) Environment conducive to learning / अधिगम के लिए अनुकूल वातावरण

(3) Effective student welfare system / प्रभावी छात्र कल्याण प्रणाली

(4) Strong and professional principal / सशक्त और व्यावसायिक प्रधानाचार्य

Q.155 To assess whether Grade 3 children genuinely grasp the concept of "rectangle" beyond its textbook definition, the teacher should primarily employ questions that necessitate:

यह आकलन करने के लिए कि क्या कक्षा 3 के बच्चे पाठ्यपुस्तक की परिभाषा से आगे "आयत" की अवधारणा को वास्तव में समझते हैं, शिक्षक को मुख्य रूप से ऐसे प्रश्नों का प्रयोग करना चाहिए जिनमें आवश्यक हो:

(1) Reciting the standard geometric properties / मानक ज्यामितीय गुणों का पाठ करना

(2) Drawing varied shapes based on definitions / परिभाषाओं के आधार पर विभिन्न आकृतियाँ बनाना

(3) Application in unfamiliar contexts / अपरिचित संदर्भों में अनुप्रयोग ✔

(4) Calculating area using the formula / सूत्र का उपयोग करके क्षेत्रफल की गणना करना

Q.156 How do alternative schools usually handle class structure?

वैकल्पिक विद्यालय सामान्यतः कक्षा संरचना को किस प्रकार संभालते हैं?

(1) Only indoor classroom teaching / केवल कक्षा के भीतर शिक्षण

(2) No interaction between students of different ages / विभिन्न आयु के विद्यार्थियों के बीच कोई अंतःक्रिया नहीं

(3) **Flexibility in age, grades, and classroom space / आयु, कक्षाओं और कक्षा-कक्ष स्थान में लचीलापन ✔**

(4) Fixed age groups and grades for all subjects / सभी विषयों के लिए निश्चित आयु समूह और कक्षाएँ

Q.157 A 7-year-old sees cartoon ads for sugary cereals and toys and quickly wants them, claiming they are "the best." What does this illustrate?

एक 7 वर्षीय बच्चा मीठे अनाज (सीरियल) और खिलौनों के कार्टून विज्ञापन देखता है और तुरंत उन्हें पाना चाहता है, यह दावा करते हुए कि वे "सबसे अच्छे" हैं। यह क्या दर्शाता है?

(1) Children make purchase choices only based on parental guidance / बच्चे केवल माता-पिता के मार्गदर्शन के आधार पर खरीदारी के विकल्प चुनते हैं

(2) Children are unaffected by ads with cartoon characters / बच्चे कार्टून पात्रों वाले विज्ञापनों से अप्रभावित रहते हैं

(3) Children's decision-making skills are improved / बच्चों के निर्णय लेने के कौशल में सुधार होता है

(4) **Children are influenced through emotional appeal and character association / बच्चे भावनात्मक अपील और पात्र से जुड़ाव के माध्यम से प्रभावित होते हैं ✔**

Q.158 Which aspect is most essential when designing a school from scratch to reflect alternative education philosophies?

वैकल्पिक शिक्षा दर्शन को प्रतिबिंबित करने के लिए आरंभ से एक विद्यालय की रूपरेखा तैयार करते समय कौन-सा पहलू सबसे आवश्यक है?

(1) Establishing traditional classroom hierarchies / पारंपरिक कक्षा पदानुक्रम स्थापित करना

(2) Enforcing strict uniform regulations / कठोर वर्दी नियमों को लागू करना

(3) **Integrating community involvement in governance / शासन में सामुदायिक भागीदारी को एकीकृत करना ✔**

(4) Focusing on standardized curriculum delivery / मानकीकृत पाठ्यचर्या के संचालन पर ध्यान केंद्रित करना

Q.159 A facilitator notices the group is losing energy. Which approach best demonstrates adaptability in method and pacing?

एक सुगमकर्ता देखता है कि समूह की ऊर्जा कम हो रही है। कौन-सा उपागम विधि और गति में अनुकूलनशीलता को सबसे अच्छी तरह प्रदर्शित करता है?

(1) Ignoring group energy / समूह की ऊर्जा की उपेक्षा करना

(2) **Inserting an energiser activity / एक ऊर्जावर्धक (एनर्जाइज़र) गतिविधि शामिल करना ✔**

(3) Continuing with the same plan / उसी योजना को जारी रखना

(4) Focusing on the facilitator's opinions / सुगमकर्ता के विचारों पर ध्यान केंद्रित करना

Q.160 A teacher ensures fair evaluation and treats all students equally. This reflects:

एक शिक्षक निष्पक्ष मूल्यांकन सुनिश्चित करता है और सभी विद्यार्थियों के साथ समान व्यवहार करता है। यह दर्शाता है:

(1) Maintaining procedural consistency in classroom management practices / कक्षा प्रबंधन प्रथाओं में प्रक्रियात्मक संगति बनाए रखना

(2) Standardizing instructional delivery to ensure uniform learning outcomes / एकसमान अधिगम परिणाम सुनिश्चित करने के लिए शिक्षण प्रस्तुति का मानकीकरण

(3) **Adhering to professional ethical principles in assessment and interaction / आकलन और अंतःक्रिया में व्यावसायिक नैतिक सिद्धांतों का पालन करना ✔**

(4) Implementing impartial administrative norms for academic accountability / शैक्षणिक जवाबदेही के लिए निष्पक्ष प्रशासनिक मानदंडों को लागू करना

Q.161 Why is it important to analyze a social studies textbook before using it for teaching?
शिक्षण के लिए उपयोग करने से पहले सामाजिक अध्ययन की पाठ्यपुस्तक का विश्लेषण करना क्यों महत्वपूर्ण है?

(1) To check the price of the book / पुस्तक का मूल्य जाँचने के लिए
(2) To ensure it is the thickest book available / यह सुनिश्चित करने के लिए कि यह उपलब्ध सबसे मोटी पुस्तक है
(3) **To ensure content and curriculum fit / विषय-वस्तु और पाठ्यचर्या की अनुरूपता सुनिश्चित करने के लिए ✔**
(4) To see if it has colorful pictures / यह देखने के लिए कि इसमें रंगीन चित्र हैं या नहीं

Q.162 Which aspect distinguishes social sciences from social studies?
कौन-सा पहलू सामाजिक विज्ञानों को सामाजिक अध्ययन से अलग करता है?

(1) Social sciences focus on theoretical analysis, whereas social studies focus on memorization. / सामाजिक विज्ञान सैद्धांतिक विश्लेषण पर केंद्रित होते हैं, जबकि सामाजिक अध्ययन रटने पर केंद्रित होता है।
(2) Social sciences are taught only at higher levels, whereas social studies are taught at primary levels. / सामाजिक विज्ञान केवल उच्च स्तरों पर पढ़ाए जाते हैं, जबकि सामाजिक अध्ययन प्राथमिक स्तरों पर पढ़ाया जाता है।
(3) **Social sciences are discipline-based, whereas social studies are integrated for teaching. / सामाजिक विज्ञान विषय-आधारित होते हैं, जबकि सामाजिक अध्ययन शिक्षण के लिए एकीकृत होता है। ✔**
(4) Social sciences exclude real-life applications, whereas social studies include them. / सामाजिक विज्ञानों में वास्तविक जीवन के अनुप्रयोग शामिल नहीं होते, जबकि सामाजिक अध्ययन में वे शामिल होते हैं।

Q.163 Developing scientific temper in EVS primarily involves:
पर्यावरण अध्ययन (EVS) में वैज्ञानिक दृष्टिकोण विकसित करने में मुख्य रूप से शामिल है:

(1) Blind acceptance of facts / तथ्यों को आँख मूँदकर स्वीकार करना
(2) Learning only from teachers / केवल शिक्षकों से सीखना
(3) **Observation and inquiry / अवलोकन और जाँच-पड़ताल ✔**
(4) Avoiding experimentation / प्रयोग करने से बचना

Q.164 Which action best exemplifies administrative leadership in a school context?
विद्यालय के संदर्भ में कौन-सा कार्य प्रशासनिक नेतृत्व का सबसे अच्छा उदाहरण है?

(1) Supervising sports activities / खेल गतिविधियों का पर्यवेक्षण करना
(2) Designing classroom lesson plans / कक्षा पाठ योजनाएँ तैयार करना
(3) **Establishing efficient operational systems / कुशल परिचालन प्रणालियाँ स्थापित करना ✔**
(4) Providing one-on-one tutoring / व्यक्तिगत (वन-ऑन-वन) शिक्षण प्रदान करना

Q.165 Which describes a potential societal need for liberalization in education?
कौन-सा विकल्प शिक्षा में उदारीकरण की संभावित सामाजिक आवश्यकता का वर्णन करता है?

(1) To restrict international student exchange / अंतर्राष्ट्रीय छात्र विनिमय को प्रतिबंधित करने के लिए
(2) To reduce private sector involvement / निजी क्षेत्र की भागीदारी कम करने के लिए
(3) To limit technology adoption in schools / विद्यालयों में प्रौद्योगिकी को अपनाने को सीमित करने के लिए
(4) **To allow for more diverse educational opportunities / अधिक विविध शैक्षिक अवसरों की अनुमति देने के लिए ✔**

Q.166 A teacher is planning a project-based learning activity where students must investigate local history. How can textbooks best be utilized to support this activity within the teaching-learning process?
एक शिक्षक परियोजना-आधारित अधिगम गतिविधि की योजना बना रहा है जिसमें विद्यार्थियों को स्थानीय इतिहास की जाँच करनी है। शिक्षण-अधिगम प्रक्रिया में इस गतिविधि का समर्थन करने के लिए पाठ्यपुस्तकों का सबसे अच्छा उपयोग कैसे किया जा सकता है?

(1) As the only source of information for completing the project work / परियोजना कार्य पूरा करने के लिए सूचना के एकमात्र स्रोत के रूप में

(2) Primarily for daily instruction unrelated to the project activity / मुख्य रूप से परियोजना गतिविधि से असंबंधित दैनिक शिक्षण के लिए

(3) As a foundational resource for background information and key concepts / पृष्ठभूमि जानकारी और प्रमुख अवधारणाओं के लिए एक आधारभूत संसाधन के रूप में ✔

(4) Only for assessment purposes at the end of the learning activity / केवल अधिगम गतिविधि के अंत में आकलन के उद्देश्यों के लिए

Q.167 Which tool is commonly used for lesson planning in the pedagogy of English at the primary level?
प्राथमिक स्तर पर अंग्रेजी के शिक्षणशास्त्र में पाठ योजना के लिए सामान्यतः किस उपकरण का उपयोग किया जाता है?

(1) Assessment rubric / आकलन रूब्रिक

(2) Syllabus outline / पाठ्यक्रम रूपरेखा

(3) Lesson plan template / पाठ योजना टेम्पलेट ✔

(4) Curriculum guide / पाठ्यचर्या मार्गदर्शिका

Q.168 Which of the following best evaluates the impact of including English as a compulsory subject in the curriculum on students from non-English speaking backgrounds?
निम्नलिखित में से कौन-सा कथन गैर-अंग्रेजी भाषी पृष्ठभूमि के विद्यार्थियों पर पाठ्यचर्या में अंग्रेजी को अनिवार्य विषय के रूप में शामिल करने के प्रभाव का सबसे अच्छा मूल्यांकन करता है?

(1) It automatically improves overall academic performance / यह स्वतः ही समग्र शैक्षणिक प्रदर्शन में सुधार करता है

(2) It has no significant impact on their learning outcomes / इसका उनके अधिगम परिणामों पर कोई महत्वपूर्ण प्रभाव नहीं पड़ता है

(3) It benefits only students planning higher studies abroad / इससे केवल विदेश में उच्च अध्ययन की योजना बनाने वाले विद्यार्थियों को लाभ होता है

(4) It creates opportunities and challenges in linguistic equity / यह भाषाई समता में अवसर और चुनौतियाँ, दोनों उत्पन्न करता है ✔

Q.169 Which of the following is an example of a low cost or no cost teaching- learning material?
निम्नलिखित में से कौन-सा कम लागत या बिना लागत वाली शिक्षण-अधिगम सामग्री का एक उदाहरण है?

(1) Ready-made globes / बने-बनाए ग्लोब

(2) Digital projectors / डिजिटल प्रोजेक्टर

(3) Old newspapers / पुराने समाचार पत्र ✔

(4) Smartboards / स्मार्टबोर्ड

Q.170 Which feature best characterizes the Grammar Translation Method in English language teaching?
अंग्रेजी भाषा शिक्षण में व्याकरण-अनुवाद विधि की सबसे अच्छी विशेषता कौन-सी है?

(1) Prioritizing oral fluency over accuracy / शुद्धता की तुलना में मौखिक प्रवाह को प्राथमिकता देना

(2) Total avoidance of learners' mother tongue / शिक्षार्थियों की मातृभाषा से पूर्णतः बचना

(3) Use of communicative activities in class / कक्षा में संप्रेषणात्मक गतिविधियों का उपयोग

(4) Emphasis on translation between languages / भाषाओं के बीच अनुवाद पर बल ✔

Q.171 Textbooks may limit learning because they:

पाठ्यपुस्तकें अधिगम को सीमित कर सकती हैं क्योंकि वे:

(1) Promote independent material creation / स्वतंत्र सामग्री निर्माण को बढ़ावा देती हैं

(2) Encourage critical thinking / आलोचनात्मक चिंतन को प्रोत्साहित करती हैं

(3) Offer flexible content and methods / लचीली विषय-वस्तु और विधियाँ प्रदान करती हैं

(4) Control content, methods, and assessment / विषय-वस्तु, विधियों और आकलन को नियंत्रित करती हैं ✔

Q.172 What term describes the shared values, relationships, and practices within a school environment?

विद्यालय के वातावरण में साझा मूल्यों, संबंधों और प्रथाओं को किस शब्द से वर्णित किया जाता है?

(1) Curriculum / पाठ्यचर्या

(2) Assessment / आकलन

(3) Discipline / अनुशासन

(4) School culture / विद्यालय संस्कृति ✔

Q.173 Conflict arises between a school and an NGO over project resource allocation (rigid positions taken). Which approach yields the most creative solutions?

परियोजना संसाधन आवंटन को लेकर एक विद्यालय और एक NGO के बीच संघर्ष उत्पन्न होता है (कठोर रुख अपनाए गए हैं)। कौन-सा उपागम सबसे अधिक रचनात्मक समाधान देता है?

(1) Establishing coercive external arbitration / बलपूर्वक बाहरी मध्यस्थता स्थापित करना

(2) Utilizing management domination / प्रबंधन के प्रभुत्व का उपयोग करना

(3) Engaging in interest-based negotiation / हित-आधारित वार्ता में शामिल होना ✔

(4) Adopting a middle ground compromise / बीच का रास्ता अपनाकर समझौता करना

Q.174 Which objective best reflects a learner-centered principle in English language pedagogy?

कौन-सा उद्देश्य अंग्रेजी भाषा शिक्षणशास्त्र में शिक्षार्थी-केंद्रित सिद्धांत को सबसे अच्छी तरह दर्शाता है?

(1) Prioritizing textbook completion / पाठ्यपुस्तक पूरी करने को प्राथमिकता देना

(2) Emphasizing teacher-led lectures / शिक्षक-नेतृत्व वाले व्याख्यानों पर बल देना

(3) Focusing on repetitive drills / दोहराव वाले अभ्यासों (ड्रिल) पर ध्यान केंद्रित करना

(4) Promoting critical language use / भाषा के आलोचनात्मक उपयोग को बढ़ावा देना ✔

Q.175 Which of the following approach is modelling organisational values, strengthening productive school culture, building collaborative cultures, and creating structures for participating in school decisions?

निम्नलिखित में से कौन-सा उपागम संगठनात्मक मूल्यों का प्रतिरूपण (मॉडलिंग), उत्पादक विद्यालय संस्कृति को सुदृढ़ करना, सहयोगात्मक संस्कृतियों का निर्माण करना और विद्यालय के निर्णयों में भागीदारी के लिए संरचनाएँ बनाना है?

(1) Constructivist / रचनावादी

(2) Culture centered / संस्कृति-केंद्रित ✔

(3) Performance centered / प्रदर्शन-केंद्रित

(4) Mission centered / मिशन-केंद्रित

Q.176 What is one primary function of textbooks in the teaching–learning process?

शिक्षण–अधिगम प्रक्रिया में पाठ्यपुस्तकों का एक प्राथमिक कार्य क्या है?

(1) They determine teaching methods automatically / वे शिक्षण विधियों का स्वतः निर्धारण करती हैं

(2) They evaluate student performance formally / वे विद्यार्थियों के प्रदर्शन का औपचारिक मूल्यांकन करती हैं

(3) They organize and sequence curriculum content / वे पाठ्यचर्या की विषय-वस्तु को व्यवस्थित और क्रमबद्ध करती हैं ✔

(4) They control classroom interaction patterns / वे कक्षा में अंतःक्रिया के प्रतिरूपों को नियंत्रित करती हैं

Q.177 Which is a key benefit of using open-ended questions in classroom evaluation?

कक्षा मूल्यांकन में मुक्त-उत्तरीय (ओपन-एंडेड) प्रश्नों का उपयोग करने का एक प्रमुख लाभ क्या है?

(1) They make grading faster. / वे ग्रेडिंग को तेज़ बनाते हैं।

(2) They require students to choose from given options. / उनमें विद्यार्थियों को दिए गए विकल्पों में से चयन करना होता है।

(3) They limit students to memorized answers. / वे विद्यार्थियों को रटे हुए उत्तरों तक सीमित करते हैं।

(4) They encourage creative and critical thinking. / वे सृजनात्मक और आलोचनात्मक चिंतन को प्रोत्साहित करते हैं। ✔

Q.178 In the context of social science education, which aspect reflects the primary scope of social studies as distinguished from social sciences?

सामाजिक विज्ञान शिक्षा के संदर्भ में, कौन-सा पहलू सामाजिक विज्ञानों से भिन्न सामाजिक अध्ययन के प्राथमिक दायरे को दर्शाता है?

(1) Developing new social theories through academic research. / शैक्षणिक शोध के माध्यम से नए सामाजिक सिद्धांतों का विकास करना।

(2) Integrating disciplines to address societal issues in class. / कक्षा में सामाजिक मुद्दों का समाधान करने के लिए विषयों को एकीकृत करना। ✔

(3) Conducting specialized empirical studies in isolated fields. / पृथक क्षेत्रों में विशिष्ट अनुभवजन्य अध्ययन करना।

(4) Focusing exclusively on historical analysis. / केवल ऐतिहासिक विश्लेषण पर ध्यान केंद्रित करना।

Q.179 Which of the following is the primary purpose of unit planning in English language pedagogy?

अंग्रेजी भाषा शिक्षणशास्त्र में इकाई योजना का प्राथमिक उद्देश्य निम्नलिखित में से कौन-सा है?

(1) To select classroom seating arrangements / कक्षा में बैठने की व्यवस्था का चयन करना

(2) To organize lessons around one theme / एक विषयवस्तु (थीम) के इर्द-गिर्द पाठों को व्यवस्थित करना ✔

(3) To assign daily homework / दैनिक गृहकार्य देना

(4) To assess students' final grades / विद्यार्थियों के अंतिम ग्रेड का आकलन करना

Q.180 When a teacher uses simple daily items like bangles for counting or old calendars for reading to support learning, it shows a:

जब एक शिक्षक अधिगम में सहायता के लिए गिनती हेतु चूड़ियों या पठन हेतु पुराने कैलेंडर जैसी साधारण दैनिक वस्तुओं का उपयोग करता है, तो यह दर्शाता है:

(1) Method that depends only on costly teaching products / एक ऐसी विधि जो केवल महँगे शिक्षण उत्पादों पर निर्भर है

(2) Cost-saving method that makes learning easy and meaningful / एक लागत-बचत विधि जो अधिगम को सरल और सार्थक बनाती है ✔

(3) System that prevents students from active involvement / एक ऐसी प्रणाली जो विद्यार्थियों को सक्रिय भागीदारी से रोकती है

(4) Practice that avoids hands-on or practical materials / एक ऐसी प्रथा जो प्रत्यक्ष (हैंड्स-ऑन) या व्यावहारिक सामग्री से बचती है

Q.181 A teacher wants to review the school's science textbooks to support gender inclusivity. Which specific change would best address subtle gender bias in curriculum materials?

एक शिक्षक लैंगिक समावेशिता का समर्थन करने के लिए विद्यालय की विज्ञान पाठ्यपुस्तकों की समीक्षा करना चाहता है। कौन-सा विशिष्ट परिवर्तन पाठ्यचर्या सामग्री में सूक्ष्म लैंगिक पूर्वाग्रह को सबसे अच्छी तरह दूर करेगा?

(1) Ensuring equal representation of male and female scientists in text and images / पाठ और चित्रों में पुरुष और महिला वैज्ञानिकों का समान प्रतिनिधित्व सुनिश्चित करना ✔

(2) Expanding coverage of scientists from diverse cultural backgrounds / विविध सांस्कृतिक पृष्ठभूमियों के वैज्ञानिकों के कवरेज का विस्तार करना

(3) Emphasizing major scientific contributions based on historical impact / ऐतिहासिक प्रभाव के आधार पर प्रमुख वैज्ञानिक योगदानों पर बल देना

(4) Using gender-neutral language while retaining existing visual examples / मौजूदा दृश्य उदाहरणों को बनाए रखते हुए लिंग-तटस्थ भाषा का उपयोग करना

Q.182 A school is planning to implement an inclusive education policy. Which combination of practices would best ensure accurate disability identification and effective assessment for children with special needs in a culturally diverse classroom?

एक विद्यालय समावेशी शिक्षा नीति लागू करने की योजना बना रहा है। सांस्कृतिक रूप से विविध कक्षा में विशेष आवश्यकता वाले बच्चों के लिए दिव्यांगता की सटीक पहचान और प्रभावी आकलन सुनिश्चित करने हेतु प्रथाओं का कौन-सा संयोजन सबसे उपयुक्त होगा?

(1) Using teacher observations and standardized tests only / केवल शिक्षक के अवलोकन और मानकीकृत परीक्षणों का उपयोग करना

(2) Using peer evaluation as the main assessment method / मुख्य आकलन विधि के रूप में सहपाठी मूल्यांकन का उपयोग करना

(3) Using multidisciplinary teams and culturally responsive tools / बहु-विषयक दलों और सांस्कृतिक रूप से संवेदनशील उपकरणों का उपयोग करना ✔

(4) Using only parental reports for identification / पहचान के लिए केवल माता-पिता की रिपोर्टों का उपयोग करना

Q.183 Which approach begins with a theoretical discussion before practical experience?

कौन-सा उपागम व्यावहारिक अनुभव से पहले सैद्धांतिक चर्चा से आरंभ होता है?

(1) Inquiry approach / जाँच-पड़ताल (इन्क्वायरी) उपागम

(2) Inductive approach / आगमनात्मक उपागम

(3) Project-based approach / परियोजना-आधारित उपागम

(4) Deductive approach / निगमनात्मक उपागम ✔

Q.184 A B.Ed trainee designs a lesson where students are first taught that metals generally conduct electricity. Then, they test different objects to check if they conduct electricity, including a wooden stick, a copper wire, a rubber band, and a plastic straw. What is the main goal of this lesson in terms of scientific reasoning?

एक B.Ed प्रशिक्षु एक ऐसा पाठ तैयार करता है जिसमें विद्यार्थियों को पहले यह पढ़ाया जाता है कि धातुएँ सामान्यतः विद्युत की चालक होती हैं। फिर, वे यह जाँचने के लिए विभिन्न वस्तुओं का परीक्षण करते हैं कि क्या वे विद्युत का चालन करती हैं, जिनमें एक लकड़ी की छड़ी, एक ताँबे का तार, एक रबर बैंड और एक प्लास्टिक स्ट्रॉ शामिल हैं। वैज्ञानिक तर्क की दृष्टि से इस पाठ का मुख्य लक्ष्य क्या है?

(1) To encourage students to form new theories using inductive reasoning / विद्यार्थियों को आगमनात्मक तर्क का उपयोग करके नए सिद्धांत बनाने के लिए प्रोत्साहित करना

(2) To teach students to use analogical reasoning between materials / विद्यार्थियों को पदार्थों के बीच सादृश्यमूलक तर्क का उपयोग करना सिखाना

(3) To help students apply deductive reasoning to verify a scientific law / विद्यार्थियों को किसी वैज्ञानिक नियम का सत्यापन करने के लिए निगमनात्मक तर्क लागू करने में सहायता करना ✔

(4) To guide students in eliminating misconceptions through trial and error / प्रयास और त्रुटि के माध्यम से भ्रांतियों को दूर करने में विद्यार्थियों का मार्गदर्शन करना

Q.185 How does fun mathematics influence the learning environment?

मनोरंजक गणित अधिगम वातावरण को किस प्रकार प्रभावित करता है?

(1) It fosters a close relationship between teachers and students without pressure / यह बिना दबाव के शिक्षकों और विद्यार्थियों के बीच घनिष्ठ संबंध को बढ़ावा देता है ✔

(2) It imposes strict discipline on learners / यह शिक्षार्थियों पर कठोर अनुशासन थोपता है

(3) It eliminates the use of games in learning / यह अधिगम में खेलों के उपयोग को समाप्त करता है

(4) It encourages competition among students / यह विद्यार्थियों के बीच प्रतिस्पर्धा को प्रोत्साहित करता है

Q.186 What is a significant outcome for students participating in Eco-Clubs?

इको-क्लब में भाग लेने वाले विद्यार्थियों के लिए एक महत्वपूर्ण परिणाम क्या है?

(1) Enhanced abilities in competitive exams. / प्रतियोगी परीक्षाओं में बढ़ी हुई क्षमताएँ।

(2) Improved physical fitness. / बेहतर शारीरिक स्वास्थ्य।

(3) Better understanding of global politics. / वैश्विक राजनीति की बेहतर समझ।

(4) Positive shifts in attitudes towards the environment. / पर्यावरण के प्रति अभिवृत्तियों में सकारात्मक परिवर्तन। ✔

Q.187 In a lesson on number types, a teacher asks students to classify the following: 0, 2, -1, and 1/2. Which classification accurately matches each number according to standard school curricula?

संख्याओं के प्रकारों पर एक पाठ में, एक शिक्षक विद्यार्थियों से निम्नलिखित का वर्गीकरण करने के लिए कहता है: 0, 2, -1 और 1/2। मानक विद्यालयी पाठ्यचर्या के अनुसार कौन-सा वर्गीकरण प्रत्येक संख्या का सही मिलान करता है?

(1) 0 is a whole number, 2 is a natural number, -1 is an integer, 1/2 is a rational number / 0 एक पूर्ण संख्या है, 2 एक प्राकृत संख्या है, -1 एक पूर्णांक है, 1/2 एक परिमेय संख्या है ✔

(2) 0 is a rational number, 2 is irrational, -1 is a whole number, 1/2 is an integer / 0 एक परिमेय संख्या है, 2 अपरिमेय है, -1 एक पूर्ण संख्या है, 1/2 एक पूर्णांक है

(3) 0 is a natural number, 2 is a rational number, -1 is a real number, 1/2 is an irrational number / 0 एक प्राकृत संख्या है, 2 एक परिमेय संख्या है, -1 एक वास्तविक संख्या है, 1/2 एक अपरिमेय संख्या है

(4) 0 is an integer, 2 is a whole number, -1 is irrational, 1/2 is a natural number / 0 एक पूर्णांक है, 2 एक पूर्ण संख्या है, -1 अपरिमेय है, 1/2 एक प्राकृत संख्या है

Q.188 A teacher asks students to listen to a short story and then discuss its main ideas in pairs. Which LSRW skills are mainly developed through this activity?
एक शिक्षक विद्यार्थियों से एक छोटी कहानी सुनने और फिर जोड़ियों में उसके मुख्य विचारों पर चर्चा करने के लिए कहता है। इस गतिविधि के माध्यम से मुख्य रूप से कौन-से LSRW कौशल विकसित होते हैं?

(1) Speaking and writing skills together / बोलने और लिखने के कौशल एक साथ
(2) Reading and listening skills together / पढ़ने और सुनने के कौशल एक साथ
(3) Listening and memorisation skills together / सुनने और स्मरण करने के कौशल एक साथ
(4) **Listening and speaking skills together / सुनने और बोलने के कौशल एक साथ ✔**

Q.189 Which evaluation technique helps teachers check students' pronunciation in language education?
भाषा शिक्षा में कौन-सी मूल्यांकन तकनीक शिक्षकों को विद्यार्थियों के उच्चारण की जाँच करने में सहायता करती है?

(1) **Recitation / सस्वर पाठ ✔**
(2) Painting / चित्रकारी
(3) Building models / मॉडल बनाना
(4) Calculating sums / जोड़ की गणना करना

Q.190 Which of the following best illustrates the use of three-dimensional visual aids in teaching?
निम्नलिखित में से कौन-सा शिक्षण में त्रि-आयामी दृश्य सहायक सामग्री के उपयोग को सबसे अच्छी तरह दर्शाता है?

(1) Slide / स्लाइड
(2) **Model / मॉडल ✔**
(3) Magazine / पत्रिका
(4) Radio broadcast / रेडियो प्रसारण

Q.191 What role do social interactions play in constructivist mathematics learning?
रचनावादी गणित अधिगम में सामाजिक अंतःक्रियाएँ क्या भूमिका निभाती हैं?

(1) They force students to memorize more facts / वे विद्यार्थियों को अधिक तथ्य रटने के लिए बाध्य करती हैं
(2) They are not considered important in mathematics learning / उन्हें गणित अधिगम में महत्वपूर्ण नहीं माना जाता है
(3) **They help shape individual interpretations of observations / वे अवलोकनों की व्यक्तिगत व्याख्याओं को आकार देने में सहायता करती हैं ✔**
(4) They limit students' understanding of concepts / वे विद्यार्थियों की अवधारणाओं की समझ को सीमित करती हैं

Q.192 What educational interventions are suggested to address the effects of dyslexia?
डिस्लेक्सिया के प्रभावों से निपटने के लिए कौन-से शैक्षिक हस्तक्षेप सुझाए गए हैं?

(1) **Information technology and individual counselling / सूचना प्रौद्योगिकी और व्यक्तिगत परामर्श ✔**
(2) Physical coordination exercises / शारीरिक समन्वय व्यायाम
(3) Group learning and memorization techniques / समूह अधिगम और स्मरण तकनीकें
(4) Conventional classroom teaching methods / पारंपरिक कक्षा शिक्षण विधियाँ

Q.193 Which of the following is a common activity organized by a science club in schools?
निम्नलिखित में से कौन-सी विद्यालयों में विज्ञान क्लब द्वारा आयोजित की जाने वाली एक सामान्य गतिविधि है?

(1) Preparing ecological displays / पारिस्थितिक प्रदर्शनियाँ तैयार करना
(2) Arranging expert lectures / विशेषज्ञ व्याख्यानों की व्यवस्था करना
(3) Organizing quiz competitions / प्रश्नोत्तरी प्रतियोगिताओं का आयोजन करना
(4) **Conducting science experiments / विज्ञान प्रयोग करना ✔**

Q.194 Which classroom activity promotes diversity and equality?

कौन-सी कक्षा गतिविधि विविधता और समानता को बढ़ावा देती है?

(1) Giving key leadership responsibilities only to socially privileged learners / प्रमुख नेतृत्व उत्तरदायित्व केवल सामाजिक रूप से विशेषाधिकार प्राप्त शिक्षार्थियों को देना

(2) Promoting classroom communication using just one dominant language / केवल एक प्रमुख भाषा का उपयोग करके कक्षा में संप्रेषण को बढ़ावा देना

(3) Celebrating diverse cultural events and inviting active student participation / विविध सांस्कृतिक आयोजनों का उत्सव मनाना और विद्यार्थियों की सक्रिय भागीदारी आमंत्रित करना ✔

(4) Using learning materials that highlight only a single gender or community / ऐसी अधिगम सामग्री का उपयोग करना जो केवल एक लिंग या समुदाय को उजागर करती हो

Q.195 A mathematics teacher encourages students to discuss their strategies for solving a contextual problem in small groups and reflect on different approaches. This teaching method best supports which constructivist principle?

एक गणित शिक्षक विद्यार्थियों को छोटे समूहों में किसी संदर्भगत समस्या को हल करने की अपनी रणनीतियों पर चर्चा करने और विभिन्न उपागमों पर चिंतन करने के लिए प्रोत्साहित करता है। यह शिक्षण विधि किस रचनावादी सिद्धांत का सबसे अच्छा समर्थन करती है?

(1) Immediate grading of answers / उत्तरों की तत्काल ग्रेडिंग

(2) Individual rote practice / व्यक्तिगत रटंत अभ्यास

(3) Teacher explanation only / केवल शिक्षक द्वारा व्याख्या

(4) Peer dialogue and reflection / सहपाठी संवाद और चिंतन ✔

Q.196 A school provides subsidized transport, private sanitation, and free remedial classes to improve girl attendance and retention. This primarily addresses which type of need?

बालिकाओं की उपस्थिति और ठहराव में सुधार के लिए एक विद्यालय रियायती परिवहन, निजी स्वच्छता सुविधा और निःशुल्क उपचारात्मक कक्षाएँ प्रदान करता है। यह मुख्य रूप से किस प्रकार की आवश्यकता को पूरा करता है?

(1) Strategic gender needs / रणनीतिक लैंगिक आवश्यकताएँ

(2) Practical gender needs / व्यावहारिक लैंगिक आवश्यकताएँ ✔

(3) Relational gender needs / संबंधपरक लैंगिक आवश्यकताएँ

(4) Institutional gender needs / संस्थागत लैंगिक आवश्यकताएँ

Q.197 Which approach best enables Indian classrooms to address both gender and socioeconomic inequality while promoting inclusivity?

कौन-सा उपागम भारतीय कक्षाओं को समावेशिता को बढ़ावा देते हुए लैंगिक और सामाजिक-आर्थिक असमानता, दोनों को दूर करने में सबसे अधिक सक्षम बनाता है?

(1) Emphasizing competitive academic rankings / प्रतिस्पर्धी शैक्षणिक रैंकिंग पर बल देना

(2) Enforcing uniform language policies strictly / एकसमान भाषा नीतियों को कठोरता से लागू करना

(3) Limiting parental involvement in planning / नियोजन में माता-पिता की भागीदारी को सीमित करना

(4) Implementing differentiated instruction strategies / विभेदित शिक्षण रणनीतियों को लागू करना ✔

Q.198 A language teacher is designing a lesson plan that equally integrates listening, speaking, reading, and writing activities for a group of students learning a new language. Which instructional sequence best exemplifies an effective approach to incorporating all four LSRW skills in a communicative classroom environment?

एक भाषा शिक्षक नई भाषा सीख रहे विद्यार्थियों के एक समूह के लिए ऐसी पाठ योजना तैयार कर रहा है जिसमें सुनने, बोलने, पढ़ने और लिखने की गतिविधियों को समान रूप से एकीकृत किया गया हो। कौन-सा शिक्षण अनुक्रम संप्रेषणात्मक कक्षा वातावरण में सभी चार LSRW कौशलों को शामिल करने के एक प्रभावी उपागम का सबसे अच्छा उदाहरण है?

(1) Students read aloud, write sentences, listen to instructions, and draw a picture / विद्यार्थी ज़ोर से पढ़ते हैं, वाक्य लिखते हैं, निर्देश सुनते हैं और एक चित्र बनाते हैं

(2) Students write a dialogue, speak lines, listen to corrections, and answer grammar questions / विद्यार्थी एक संवाद लिखते हैं, पंक्तियाँ बोलते हैं, सुधार सुनते हैं और व्याकरण के प्रश्नों के उत्तर देते हैं

(3) Students read silently, listen to news, answer questions orally, and draw scenes / विद्यार्थी मौन पठन करते हैं, समाचार सुनते हैं, प्रश्नों के मौखिक उत्तर देते हैं और दृश्य बनाते हैं

(4) Students listen to a short story, discuss its content, read a related article, and compose a summary / विद्यार्थी एक छोटी कहानी सुनते हैं, उसकी विषय-वस्तु पर चर्चा करते हैं, एक संबंधित लेख पढ़ते हैं और एक सारांश लिखते हैं ✔

Q.199 Which aspect of curriculum design can unintentionally reinforce gender stereotypes among students?

पाठ्यचर्या रचना का कौन-सा पहलू अनजाने में विद्यार्थियों के बीच लैंगिक रूढ़ियों को सुदृढ़ कर सकता है?

(1) Giving equal opportunities for boys and girls to participate in sports / लड़कों और लड़कियों को खेलों में भाग लेने के समान अवसर देना

(2) Highlighting achievements of women from diverse backgrounds / विविध पृष्ठभूमियों की महिलाओं की उपलब्धियों को उजागर करना

(3) Including stories in textbooks that depict only boys as leaders / पाठ्यपुस्तकों में ऐसी कहानियाँ शामिल करना जिनमें केवल लड़कों को नेता के रूप में दर्शाया गया हो ✔

(4) Balancing examples of male and female scientists in science lessons / विज्ञान के पाठों में पुरुष और महिला वैज्ञानिकों के उदाहरणों को संतुलित करना

Q.200 Which of the following disorders is characterized by difficulty in muscle control, which causes problems with movement and coordination, language and speech, and can affect learning?

निम्नलिखित में से कौन-सा विकार मांसपेशियों पर नियंत्रण में कठिनाई की विशेषता रखता है, जिसके कारण गति और समन्वय, भाषा और वाणी में समस्याएँ होती हैं, और यह अधिगम को प्रभावित कर सकता है?

(1) Dyslexia / डिस्लेक्सिया

(2) Dyscalculia / डिस्कैलकुलिया

(3) Dyspraxia / डिस्प्रैक्सिया ✔

(4) Dysgraphia / डिस्ग्राफिया

Answer Key / उत्तर कुंजी

1	**2**	**3**	**4**	**5**	**6**	**7**	**8**	**9**	**10**	**11**	**12**	**13**	**14**	**15**
4	2	2	1	2	1	1	3	2	4	3	4	3	1	2
16	**17**	**18**	**19**	**20**	**21**	**22**	**23**	**24**	**25**	**26**	**27**	**28**	**29**	**30**
3	2	4	2	3	2	1	3	2	4	1	4	3	4	1
31	**32**	**33**	**34**	**35**	**36**	**37**	**38**	**39**	**40**	**41**	**42**	**43**	**44**	**45**
4	2	1	1	2	1	1	1	2	2	3	4	4	3	4
46	**47**	**48**	**49**	**50**	**51**	**52**	**53**	**54**	**55**	**56**	**57**	**58**	**59**	**60**
1	4	4	1	2	2	1	3	4	3	1	1	2	1	2

61 3	**62** 4	**63** 3	**64** 1	**65** 2	**66** 2	**67** 3	**68** 3	**69** 2	**70** 2	**71** 2	**72** 2	**73** 4	**74** 4	**75** 3
76 2	**77** 4	**78** 4	**79** 3	**80** 3	**81** 1	**82** 4	**83** 2	**84** 1	**85** 2	**86** 3	**87** 1	**88** 2	**89** 3	**90** 2
91 4	**92** 2	**93** 1	**94** 2	**95** 4	**96** 3	**97** 1	**98** 1	**99** 1	**100** 1	**101** 4	**102** 3	**103** 1	**104** 2	**105** 1
106 4	**107** 1	**108** 4	**109** 4	**110** 1	**111** 4	**112** 1	**113** 4	**114** 3	**115** 3	**116** 3	**117** 3	**118** 3	**119** 4	**120** 4
121 1	**122** 1	**123** 4	**124** 1	**125** 2	**126** 1	**127** 2	**128** 2	**129** 2	**130** 2	**131** 2	**132** 4	**133** 2	**134** 4	**135** 1
136 1	**137** 2	**138** 2	**139** 1	**140** 2	**141** 1	**142** 1	**143** 1	**144** 4	**145** 2	**146** 3	**147** 1	**148** 4	**149** 4	**150** 3
151 1	**152** 3	**153** 1	**154** 1	**155** 3	**156** 3	**157** 4	**158** 3	**159** 2	**160** 3	**161** 3	**162** 3	**163** 3	**164** 3	**165** 4
166 3	**167** 3	**168** 4	**169** 3	**170** 4	**171** 4	**172** 4	**173** 3	**174** 4	**175** 2	**176** 3	**177** 4	**178** 2	**179** 2	**180** 2
181 1	**182** 3	**183** 4	**184** 3	**185** 1	**186** 4	**187** 1	**188** 4	**189** 1	**190** 2	**191** 3	**192** 1	**193** 4	**194** 3	**195** 4
196 2	**197** 4	**198** 4	**199** 3	**200** 3										

Quick Sarkari

GOVT. OF NCT OF DELHI
Delhi Subordinate Services Selection Board
FC-18, Institutional Area, Karkardooma, Delhi – 110092.
www.dsssb.delhigovt.nic.in

Participant ID	[redacted]
Participant Name	[redacted]
Test Center Name	
Test Date	31/03/2026
Test Time	9:00 AM - 11:00 AM
Subject	Assistant Teacher Primary

Section : **General Intelligence and Reasoning Ability**

Q.1 **If the water source is placed along M-N, as shown in the figure, which of the given options will be the water reflection of the given figure?**



Ans

✗ 1.


✗ 2.


✗ 3.


✓ 4.


Question ID : **441009864930**
Option 1 ID : **4410093412820**
Option 2 ID : **4410093412821**
Option 3 ID : **4410093412823**
Option 4 ID : **4410093412822**

QuickSarkari.com | WhatsApp Channel | Telegram: t.me/quick_sarkari

Q.2 **Refer to the following number, symbol series and answer the question. Counting to be done from left to right only. (All numbers are single-digit numbers only).**

(Left) 2 ^ 7 ? $ % < ? 4 3 \ & * @ # < 6 7 + 3 # (Right)
How many such numbers are there, each of which is immediately preceded by a symbol and also immediately followed by a symbol?

Ans
✗ 1. One
✓ 2. Two
✗ 3. None
✗ 4. Three

Question ID : **441009788247**
Option 1 ID : **4410093106988**
Option 2 ID : **4410093106989**
Option 3 ID : **4410093106987**
Option 4 ID : **4410093106990**

Q.3 **Refer to the following letter series and answer the question. (Counting to be done from left to right only).**
(Left) Z M L Q B X K C H A W V N T R Y D F J P I A U K E O X Z (Right).
How many such vowels are there, each of which is immediately preceded by a vowel and immediately followed by a vowel?

Ans
✗ 1. Three
✓ 2. One
✗ 3. Two
✗ 4. Four

Question ID : **441009770867**
Option 1 ID : **4410093037464**
Option 2 ID : **4410093037462**
Option 3 ID : **4410093037463**
Option 4 ID : **4410093037461**

Q.4 **Based on the English alphabetical order, three of the following four letter-cluster pairs are alike in a certain way and thus form a group. Which letter-cluster pair DOES NOT belong to that group?**
(Note: The odd one out is not based on the number of consonants/vowels or their position in the letter-cluster.)

Ans
✓ 1. BK-FY
✗ 2. NW-QK
✗ 3. WF-ZT
✗ 4. FO-IC

Question ID : **441009216444**
Option 1 ID : **441009849816**
Option 2 ID : **441009849818**
Option 3 ID : **441009849817**
Option 4 ID : **441009849815**

QuickSarkari.com | WhatsApp Channel | Telegram: t.me/quick_sarkari

Q.5 What should come in place of the question mark (?) in the given series?

3, 11, 35, ?, 323, 971

Ans

✗ 1. 108

✓ 2. 107

✗ 3. 106

✗ 4. 105

Question ID : **441009216186**
Option 1 ID : **441009848786**
Option 2 ID : **441009848785**
Option 3 ID : **441009848784**
Option 4 ID : **441009848783**

Q.6 Select the correct mirror image of the given figure when the mirror is placed at MN as shown below.

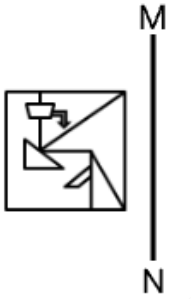

Ans

✓ 1. 

✗ 2. 

✗ 3. 

✗ 4. 

Question ID : **4410091614489**
Option 1 ID : **4410096376776**
Option 2 ID : **4410096376774**
Option 3 ID : **4410096376773**
Option 4 ID : **4410096376775**

QuickSarkari.com | WhatsApp Channel | Telegram: t.me/quick_sarkari

Q.7 Each of H, U, S, B, A, N and D has an exam on a different day of the week starting from Monday and ending on Sunday of the same week. D has an exam on Thursday. B has an exam two days before D. Only four people have exams between S and B. A has an exam on one of the days after B. U has an exam on the day immediately before H. S has an exam after B. How many people have exams between H and A?

Ans
✔ 1. Two
✘ 2. Three
✘ 3. Four
✘ 4. One

Question ID : **4410091518874**
Option 1 ID : **4410095998771**
Option 2 ID : **4410095998772**
Option 3 ID : **4410095998773**
Option 4 ID : **4410095998770**

Q.8 What will come in the place of '?' in the following equation, if '+' and '-' are interchanged and 'x' and '÷' are interchanged?
849 + 131 - 861 x 287 ÷ 836 x 209 + 74 =?4224

Ans
✘ 1. 566
✘ 2. 665
✔ 3. 656
✘ 4. 666

Question ID : **441009554689**
Option 1 ID : **4410092174070**
Option 2 ID : **4410092174071**
Option 3 ID : **4410092174072**
Option 4 ID : **4410092174073**

Q.9 E, F, G, H, K, L and N are sitting around a circular table facing the centre. Only one person sits between H and L when counted from the left of L. K sits third to the right of G. N sits third to the left of E. K sits to the immediate right of N. F is not an immediate neighbour of N. What is the position of K with respect to F?

Ans
✘ 1. Second to the left
✔ 2. Immediate left
✘ 3. Third to the right
✘ 4. Immediate right

Question ID : **441009216753**
Option 1 ID : **441009851053**
Option 2 ID : **441009851051**
Option 3 ID : **441009851054**
Option 4 ID : **441009851052**

Q.10 Based on the English alphabetical order, three of the following four are alike in a certain way and thus form a group. Which is the one that does not belong to that group?
(Note: The odd man out is not based on the number of consonants/vowels or their position in the letter cluster)8505

Ans
✗ 1. XWS
✗ 2. SRN
✗ 3. QPL
✓ 4. HHC

Question ID : **4410091782367**
Option 1 ID : **4410093083472**
Option 2 ID : **4410093083474**
Option 3 ID : **4410093083473**
Option 4 ID : **4410093083471**

Q.11 Amina ranked 15th from the bottom and 12th from the top in her class. How many students are there in her class?

Ans
✗ 1. 23
✗ 2. 25
✓ 3. 26
✗ 4. 24

Question ID : **4410091518821**
Option 1 ID : **4410095998562**
Option 2 ID : **4410095998564**
Option 3 ID : **4410095998565**
Option 4 ID : **4410095998563**

Q.12 Each of H, U, S, B, A, N and D has an exam on a different day of a week starting from Monday and ending on Sunday of the same week. H has an exam on Friday. Only two people have exams between N and H. Only four people have exams between S and N. A has an exam immediately after D. B doesn't have an exam on Monday. How many people have exam(s) between B and U?

Ans
✗ 1. Three
✗ 2. Two
✗ 3. One
✓ 4. Four

Question ID : **4410091518856**
Option 1 ID : **4410095998704**
Option 2 ID : **4410095998703**
Option 3 ID : **4410095998702**
Option 4 ID : **4410095998705**

QuickSarkari

Q.13 This question is based on the five, three-digit numbers given below.

(Left) 761 693 728 643 723 (Right)

(Example- 697 – First digit = 6, second digit = 9 and third digit = 7)
NOTE - All operations to be done from left to right.

What will be the resultant if the second digit of the highest number is added to the third digit of the lowest number?2169

Ans
✗ 1. 12
✗ 2. 14
✓ 3. 9
✗ 4. 11

Question ID : **441009788295**
Option 1 ID : **4410093107180**
Option 2 ID : **4410093107179**
Option 3 ID : **4410093107182**
Option 4 ID : **4410093107181**

Q.14 If 'A' stands for '÷' , 'B' stands for 'x', 'C' stands for '+' and 'D' stands for '-', what will come in place of question mark '?' in the following equation?
22 B 2 D 8 A 2 C 12 = ?

Ans
✓ 1. 52
✗ 2. 40
✗ 3. 32
✗ 4. 46

Question ID : **4410091606222**
Option 1 ID : **4410096343915**
Option 2 ID : **4410096343913**
Option 3 ID : **4410096343912**
Option 4 ID : **4410096343914**

Q.15 Which of the following letter-number clusters will replace the question mark (?) in the given series to make it logically complete?

ZLG20, GSN30, NZU40, UGB50, ?

Ans
✗ 1. DNI60
✓ 2. BNI60
✗ 3. BMI60
✗ 4. BNJ60

Question ID : **4410091614455**
Option 1 ID : **4410096376639**
Option 2 ID : **4410096376637**
Option 3 ID : **4410096376638**
Option 4 ID : **4410096376640**

QuickSarkari.com | WhatsApp Channel | Telegram: t.me/quick_sarkari

Q.16 OPRT is related to XYAC in a certain way based on the English alphabetical order. In the same way, FGIK is related to OPRT. To which of the following is STVX related, following the same logic? 5088

Ans
✗ 1. BBDG
✗ 2. BDDG
✓ 3. BCEG
✗ 4. BCDG

Question ID : **441009779051**
Option 1 ID : **4410093070209**
Option 2 ID : **4410093070208**
Option 3 ID : **4410093070207**
Option 4 ID : **4410093070210**

Q.17 Each vowel in the word ABESSIVE is changed to the second letter following it in the English alphabetical order and each consonant is changed to the letter immediately preceding it in the English alphabetical order. How many letters will appear exactly twice in the new group of letters thus formed?

Ans
✗ 1. Three
✓ 2. Two
✗ 3. One
✗ 4. Four

Question ID : **441009216474**
Option 1 ID : **441009849937**
Option 2 ID : **441009849936**
Option 3 ID : **441009849935**
Option 4 ID : **441009849938**

Q.18 S is the sister of A. A is the brother of Y. B is the father of W. W is the son of Y. How is S related to B?

Ans
✗ 1. Wife
✗ 2. Mother
✗ 3. Wife's mother
✓ 4. Wife's sister

Question ID : **4410091614468**
Option 1 ID : **4410096376691**
Option 2 ID : **4410096376692**
Option 3 ID : **4410096376690**
Option 4 ID : **4410096376689**

QuickSarkari.com | WhatsApp Channel | Telegram: t.me/quick_sarkari

Q.19 6 is related to 41 following a certain logic. Following the same logic, 9 is related to 86. To which of the following is 11 related to, following the same logic?
(NOTE : Operations should be performed on the whole numbers, without breaking down the numbers into its constituent digits. E.g. 13 – Operations on 13 such as adding /subtracting /multiplying etc. to 13 can be performed. Breaking down 13 into 1 and 3 and then performing mathematical operations on 1 and 3 is not allowed.)2006

Ans
✗ 1. 116
✓ 2. 126
✗ 3. 76
✗ 4. 106

Question ID : **441009552471**
Option 1 ID : **4410092165201**
Option 2 ID : **4410092165199**
Option 3 ID : **4410092165198**
Option 4 ID : **4410092165200**

Q.20 In a certain code language, 'PALE' is coded as '5328' and 'PILE' is coded as '7238'. What is the code for 'I' in the given code language?

Ans
✗ 1. 3
✗ 2. 2
✓ 3. 7
✗ 4. 5

Question ID : **4410091518955**
Option 1 ID : **4410095999077**
Option 2 ID : **4410095999076**
Option 3 ID : **4410095999074**
Option 4 ID : **4410095999075**

Section : **General Awareness**

Q.1 India celebrates National Panchayati Raj Day in the month of April. On which of the following dates was it observed in the year 2025?

Ans
✗ 1. 5th April, 2025
✓ 2. 24th April, 2025
✗ 3. 1st April, 2025
✗ 4. 2nd April, 2025

Question ID : **441009465616**
Option 1 ID : **4410091820997**
Option 2 ID : **4410091820998**
Option 3 ID : **4410091821000**
Option 4 ID : **4410091820999**

QuickSarkari.com | WhatsApp Channel | Telegram: t.me/quick_sarkari

Q.2 180 g of glucose ($C_6H_{12}O_6$) is dissolved in 1 kg of water. At what temperature will water boil at 1.013 bar (Kb for water is 0.52K kg mol^{-1})?

Ans
✔ 1. 373.67 K

✘ 2. 373.15 K

✘ 3. 373.27 K

✘ 4. 373.202 K

Question ID : **441009616199**
Option 1 ID : **4410092418965**
Option 2 ID : **4410092418967**
Option 3 ID : **4410092418968**
Option 4 ID : **4410092418966**

Q.3 Which of the following provisions is included in the Constitution (One Hundred and Thirtieth Amendment) Bill, 2025, introduced in Lok Sabha on 20 August 2025?

Ans
✘ 1. A Minister removed from office under these provisions cannot be re-appointed after being released from custody.

✘ 2. In the case of Prime Minister of India, he/she must resign by the 90th consecutive day of custody.

✔ 3. A Minister will be removed from office if he has been arrested and detained in custody for 30 consecutive days.

✘ 4. It is not applicable to the State Cabinet Ministers unless advised by the Supreme Court of India

Question ID : **4410091461893**
Option 1 ID : **4410095775674**
Option 2 ID : **4410095775676**
Option 3 ID : **4410095775675**
Option 4 ID : **4410095775677**

Q.4 What were the recommended national poverty lines for rural and urban areas by the Tendulkar Committee for 2011-12?

Ans
✘ 1. ₹1,000 per capita per month for rural areas and ₹1,200 per capita per month for urban areas

✔ 2. ₹816 per capita per month for rural areas and ₹1,000 per capita per month for urban areas

✘ 3. ₹500 per capita per month for rural areas and ₹700 per capita per month for urban areas

✘ 4. ₹700 per capita per month for rural areas and ₹800 per capita per month for urban areas

Question ID : **441009637462**
Option 1 ID : **4410092503994**
Option 2 ID : **4410092503993**
Option 3 ID : **4410092503991**
Option 4 ID : **4410092503992**

QuickSarkari.com | WhatsApp Channel | Telegram: t.me/quick_sarkari

Q.5 **Why was NITI Aayog established as a replacement for the Planning Commission?**

Ans

✗ 1. To limit state participation in national policies

✗ 2. To abolish financial allocation mechanisms

✗ 3. To centralise policymaking in the Union Government

✓ 4. To strengthen cooperative federalism in policy formulation

Question ID : **441009234587**
Option 1 ID : **441009916772**
Option 2 ID : **441009916773**
Option 3 ID : **441009916771**
Option 4 ID : **441009916770**

Q.6 **As per the 2025 announcement, what is the minimum financial requirement for acquiring U.S. citizenship through the newly introduced Gold Card Visa?**

Ans

✓ 1. $5 million

✗ 2. $4 million

✗ 3. $6 million

✗ 4. $2 million

Question ID : **441009272986**
Option 1 ID : **4410091060493**
Option 2 ID : **4410091060492**
Option 3 ID : **4410091060494**
Option 4 ID : **4410091060491**

Q.7 **All Lok Adalat proceedings are deemed judicial proceedings under the Bharatiya Nyaya Sanhita passed in the year _____.**

Ans

✗ 1. 2020

✗ 2. 2016

✗ 3. 2018

✓ 4. 2023

Question ID : **441009328072**
Option 1 ID : **4410091278752**
Option 2 ID : **4410091278754**
Option 3 ID : **4410091278751**
Option 4 ID : **4410091278753**

QuickSarkari.com | WhatsApp Channel | Telegram: t.me/quick_sarkari

Q.8 **Which of the following statements correctly describes the Great Indian Desert?**

Ans
✗ 1. It is located in the northeastern part of India and receives high rainfall

✗ 2. It lies to the east of the Aravalli Hills and has fertile alluvial soil

✓ 3. It is a hot desert located in northwestern India with arid climate and sandy soil

✗ 4. It is formed by volcanic eruptions and is rich in black soil

Question ID : **441009265386**
Option 1 ID : **4410091031407**
Option 2 ID : **4410091031408**
Option 3 ID : **4410091031409**
Option 4 ID : **4410091031410**

Q.9 **What was the outcome of the conflict between the Mughals and Chand Bibi in Ahmednagar during 1595?**

Ans
✗ 1. The Mughals were killed by the nobles.

✗ 2. Chand Bibi successfully defeated the Mughals.

✗ 3. The Mughals withdrew from Ahmednagar.

✓ 4. A treaty was reached, and Chand Bibi ceded Berar to the Mughals.

Question ID : **441009205146**
Option 1 ID : **441009806808**
Option 2 ID : **441009806805**
Option 3 ID : **441009806807**
Option 4 ID : **441009806806**

Q.10 **The National Sports Policy (NSP), 2024, is built upon how many key pillars?**

Ans
✓ 1. Five

✗ 2. Seven

✗ 3. Four

✗ 4. Six

Question ID : **441009256262**
Option 1 ID : **441009998909**
Option 2 ID : **441009998911**
Option 3 ID : **441009998908**
Option 4 ID : **441009998910**

Q.11 **Which of the following is NOT included in the calculation of Gross Domestic Product (GDP)?**

Ans
✗ 1. Net exports

✗ 2. Sale or purchase of second-hand goods

✗ 3. Government purchases of goods and services

✓ 4. Transfer payments from the government

Question ID : **441009627130**
Option 1 ID : **4410092462673**
Option 2 ID : **4410092462675**
Option 3 ID : **4410092462672**
Option 4 ID : **4410092462674**

QuickSarkari.com | WhatsApp Channel | Telegram: t.me/quick_sarkari

Q.12 **Which of the following island features is exclusively found in the Lakshadweep group but not in the Andaman and Nicobar group?**

Ans
✗ 1. Indigenous tribal settlements
✓ 2. Atoll formations
✗ 3. Volcanic activity
✗ 4. Tropical evergreen forests

Question ID : **441009371518**
Option 1 ID : **4410091451975**
Option 2 ID : **4410091451974**
Option 3 ID : **4410091451973**
Option 4 ID : **4410091451972**

Q.13 **According to the Constitution of India, which of the following does not disqualify a person from being a member of a Panchayat?**

Ans
✓ 1. Being disqualified by the Election Commission under the Representation of the People Act, 1951
✗ 2. Being below 21 years of age on the date of the election
✗ 3. Being disqualified under a law made for elections to the State Legislature
✗ 4. Being disqualified by a law made for the elections, by the State Legislature or the Parliament

Question ID : **441009672055**
Option 1 ID : **4410092642313**
Option 2 ID : **4410092642311**
Option 3 ID : **4410092642310**
Option 4 ID : **4410092642312**

Q.14 **Which two countries signed an agreement to create a joint investment fund for Ukraine's reconstruction in April 2025?**

Ans
✓ 1. Ukraine and the United States of America
✗ 2. Ukraine and France
✗ 3. Ukraine and Germany
✗ 4. Ukraine and Poland

Question ID : **441009282546**
Option 1 ID : **4410091097380**
Option 2 ID : **4410091097381**
Option 3 ID : **4410091097379**
Option 4 ID : **4410091097378**

QuickSarkari.com | WhatsApp Channel | Telegram: t.me/quick_sarkari

Q.15 The concentration of a solution cannot be described by _____.

Ans

✗ 1. parts per million

✓ 2. volume by mass percentage (V/w)

✗ 3. mole fraction

✗ 4. mass by volume percentage (w/V)

Question ID : **441009615740**
Option 1 ID : **4410092417130**
Option 2 ID : **4410092417132**
Option 3 ID : **4410092417129**
Option 4 ID : **4410092417131**

Q.16 Where did Harihara and Bukka establish their capital city, Vijayanagar?

Ans

✓ 1. On the banks of the Tungabhadra River

✗ 2. On the banks of the Yamuna River

✗ 3. On the banks of the Bhima River

✗ 4. On the banks of the Godavari River

Question ID : **441009205166**
Option 1 ID : **441009806887**
Option 2 ID : **441009806885**
Option 3 ID : **441009806886**
Option 4 ID : **441009806888**

Q.17 The 'Pallavi' section in Carnatic music is best described as:

Ans

✓ 1. A single thematic line elaborated upon

✗ 2. A detailed depiction of mythological stories

✗ 3. The concluding devotional song

✗ 4. The fastest part of improvisation

Question ID : **441009275802**
Option 1 ID : **4410091071381**
Option 2 ID : **4410091071382**
Option 3 ID : **4410091071379**
Option 4 ID : **4410091071380**

Q.18 What is the primary difference between closed and open economies?

Ans

✓ 1. International trade

✗ 2. Domestic production

✗ 3. Government intervention

✗ 4. Consumer preferences

Question ID : **441009628866**
Option 1 ID : **4410092469617**
Option 2 ID : **4410092469618**
Option 3 ID : **4410092469616**
Option 4 ID : **4410092469619**

Q.19 **Jaisalmer Fort, built by Rawal Jaisal on the Trikuta Hill, has how many layers of walls?**

Ans
✗ 1. four
✓ 2. three
✗ 3. two
✗ 4. five

Question ID : **441009606921**
Option 1 ID : **4410092382803**
Option 2 ID : **4410092382802**
Option 3 ID : **4410092382801**
Option 4 ID : **4410092382804**

Q.20 **During the First Battle of Panipat, Babur triumphed despite a smaller force; this success was chiefly due to the adoption of which of the following strategic battle techniques?**

Ans
✗ 1. Night-ambush guerrilla strikes
✓ 2. Rumi method of warfare
✗ 3. Heavy artillery horse charge
✗ 4. Zig-zag cavalry manoeuvre

Question ID : **4410091551385**
Option 1 ID : **4410096127910**
Option 2 ID : **4410096127907**
Option 3 ID : **4410096127909**
Option 4 ID : **4410096127908**

Section : **Arithmetical and Numerical Ability**

Q.1 **A train 125 m long overtakes a man walking at 9 km/h in the same direction in 45 seconds. How many seconds will it take the train to completely cross another train 220 m long, coming from the opposite direction at 27 km/h?**

Ans
✗ 1. 46
✗ 2. 16
✓ 3. 27
✗ 4. 12

Question ID : **441009546493**
Option 1 ID : **4410092141371**
Option 2 ID : **4410092141369**
Option 3 ID : **4410092141368**
Option 4 ID : **4410092141370**

QuickSarkari.com | WhatsApp Channel | Telegram: t.me/quick_sarkari

Q.2 A and B complete a work in 9 days. If A alone can do it in 36 days, then B alone can do three-fourth of the same work in _____ days.4035

Ans
✗ 1. 36
✗ 2. 18
✗ 3. 27
✓ 4. 9

Question ID : **441009897348**
Option 1 ID : **4410093543465**
Option 2 ID : **4410093543463**
Option 3 ID : **4410093543464**
Option 4 ID : **4410093543462**

Q.3 A trader marked the selling price of an article at 20% above the article's cost price. At the time of selling, he allows a certain discount and suffers a loss of 1%. The discount allowed is _____.

Ans
✗ 1. 19.5%
✗ 2. 18.5%
✗ 3. 20.5%
✓ 4. 17.5%

Question ID : **44100947401**
Option 1 ID : **441009188700**
Option 2 ID : **441009188699**
Option 3 ID : **441009188701**
Option 4 ID : **441009188698**

Q.4 The sum of 10 numbers is 600. Find their average.

Ans
✗ 1. 58
✗ 2. 59
✓ 3. 60
✗ 4. 61

Question ID : **441009581976**
Option 1 ID : **4410092283033**
Option 2 ID : **4410092283031**
Option 3 ID : **4410092283030**
Option 4 ID : **4410092283032**

QuickSarkari

Q.5 If 54% of first number is equal to five-sevenths of second number, what is the ratio of first number to the second number?

Ans
✗ 1. 251 : 186
✗ 2. 255 : 194
✗ 3. 246 : 192
✓ 4. 250 : 189

Question ID : **441009125498**
Option 1 ID : **441009498836**
Option 2 ID : **441009498838**
Option 3 ID : **441009498837**
Option 4 ID : **441009498835**

Q.6 What sum (in ₹) will earn a simple interest of ₹1680 in 3 years at 20% per annum?

Ans
✓ 1. 2800
✗ 2. 2700
✗ 3. 2600
✗ 4. 2900

Question ID : **441009852623**
Option 1 ID : **4410093363464**
Option 2 ID : **4410093363465**
Option 3 ID : **4410093363466**
Option 4 ID : **4410093363467**

Q.7 A product is sold at a profit of 67%. If the cost price and selling price are reversed, determine the loss percentage (rounded off to two decimal places).

Ans
✗ 1. 41.15%
✗ 2. 41.64%
✗ 3. 40.07%
✓ 4. 40.12%

Question ID : **441009894679**
Option 1 ID : **4410093532787**
Option 2 ID : **4410093532788**
Option 3 ID : **4410093532789**
Option 4 ID : **4410093532786**

QuickSarkari.com | WhatsApp Channel | Telegram: t.me/quick_sarkari

Q.8 The following pie chart shows the percentage of educated and uneducated men and women in a city.

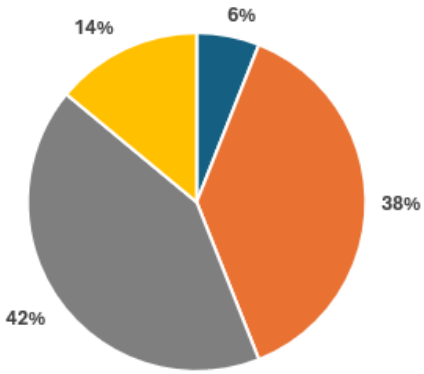

Educated women ■ Uneducated women ■ Educated men ■ Uneducated men

What is the difference between the number of educated men and uneducated women, if the total number of men and women in the city is 5,88,000?

Ans
✗ 1. 25,000
✗ 2. 50,000
✗ 3. 42,480
✓ 4. 23,520

Question ID : **441009364140**
Option 1 ID : **4410091422810**
Option 2 ID : **4410091422812**
Option 3 ID : **4410091422813**
Option 4 ID : **4410091422811**

Q.9 Simplify: $\dfrac{\frac{1}{3} \div \frac{1}{3} \times \frac{1}{3}}{\frac{1}{3} + \frac{1}{3} \text{ of } \frac{1}{3}}$

Ans
✓ 1. 0.75
✗ 2. 0.5
✗ 3. 0.83
✗ 4. 0.67

Question ID : **44100944517**
Option 1 ID : **441009177311**
Option 2 ID : **441009177312**
Option 3 ID : **441009177314**
Option 4 ID : **441009177313**

QuickSarkari.com | WhatsApp Channel | Telegram: t.me/quick_sarkari

Q.10 Simplify: $\frac{\left(\frac{12}{18}\right)}{\left(\frac{12}{5}\right)} \div \left(\frac{2}{9} \times \frac{18}{6} + \frac{2}{6}\right) + \frac{5}{6} \div \frac{18}{12} \text{ of } \frac{12}{6}$

Ans
1. $\frac{13}{14}$
2. $\frac{5}{9}$
3. $\frac{9}{4}$
4. $\frac{1}{5}$

Question ID : **4410099123 66**
Option 1 ID : **4410093603718**
Option 2 ID : **4410093603715**
Option 3 ID : **4410093603716**
Option 4 ID : **4410093603717**

Q.11 Three friends X, Y and Z started a business by investing a sum of money in the ratio of 7 : 5 : 6. After 6 months X withdraws half of his capital. If the sum invested by Z is ₹12000, out of a total annual profit of ₹65000, What is the difference between the X's and Y's profit?6282

Ans
1. ₹845
2. ₹1000
3. ₹2730
4. ₹595

Question ID : **4410098995 95**
Option 1 ID : **4410093552452**
Option 2 ID : **4410093552450**
Option 3 ID : **4410093552451**
Option 4 ID : **4410093552453**

Q.12 A customer receives 950g sugar instead of 1kg from a dishonest shopkeeper. If the shopkeeper claims to sell at cost price, what is his actual profit percentage? (Round off your answer to two decimal places.)

Ans
1. 5.26%
2. 4.76%
3. 5.13%
4. 6.31%

Question ID : **4410091622216**
Option 1 ID : **4410096407654**
Option 2 ID : **4410096407652**
Option 3 ID : **4410096407653**
Option 4 ID : **4410096407655**

QuickSarkari.com | WhatsApp Channel | Telegram: t.me/quick_sarkari

Q.13 If by melting 8 solid metallic spheres, each of radius 5 cm, a big solid sphere is made, then what will be the radius of the big solid sphere?

Ans
✗ 1. 20 cm
✗ 2. 40 cm
✓ 3. 10 cm
✗ 4. 5 cm

Question ID : **441009125604**
Option 1 ID : **441009499260**
Option 2 ID : **441009499259**
Option 3 ID : **441009499261**
Option 4 ID : **441009499262**

Q.14 Jyoti can cover a distance of 280 meters in 36 seconds. At tha

Ans
✗ 1. 24 km
✗ 2. 30 km
✗ 3. 26 km
✓ 4. 28 km

Question ID : **44100920142**
Option 1 ID : **44100980301**
Option 2 ID : **44100980304**
Option 3 ID : **44100980302**
Option 4 ID : **44100980303**

Q.15 Rodney has two grandsons Amit and Gopal. 15 year old Amit gets some money from Rodney's wealth and 16 year old Gopal gets the rest of the money. But Amit and Gopal will get the money only when they turn 21 years old. Till then the money will be kept in a bank earning interest at the rate of 4% per annum, compounded annually. When both turn 21, they receive the same amount. How much money (in ₹) had Rodney initially given Gopal, if the total money Rodney had was ₹25,500?

Ans
✗ 1. 12,500
✗ 2. 13,350
✓ 3. 13,000
✗ 4. 12,250

Question ID : **441009573214**
Option 1 ID : **4410092247977**
Option 2 ID : **4410092247978**
Option 3 ID : **4410092247976**
Option 4 ID : **4410092247979**

QuickSarkari.com | WhatsApp Channel | Telegram: t.me/quick_sarkari

Q.16 In a test, B got 54 marks while A got 75 marks, out of 110 maximum marks. What approximate percentage of B's marks was A's marks?5674

Ans
✔ 1. 138.89%
✘ 2. 72%
✘ 3. 68.18%
✘ 4. 110%

Question ID : **441009856956**
Option 1 ID : **4410093380796**
Option 2 ID : **4410093380797**
Option 3 ID : **4410093380799**
Option 4 ID : **4410093380798**

Q.17 At a health club, 60% of the members are women and 40% of the members are men. If the average age of the men is 21 years and the average age of the women is 59 years, what is the average age (in years) of all the members?

Ans
✔ 1. 43.8
✘ 2. 34.5
✘ 3. 37.8
✘ 4. 40.2

Question ID : **441009539450**
Option 1 ID : **4410092113196**
Option 2 ID : **4410092113198**
Option 3 ID : **4410092113197**
Option 4 ID : **4410092113199**

Q.18 A solid toy is in the form of a right circular cylinder with a hemispherical shape at one end and a cone at the other end. Their common radius is 2 cm and the height of the cylinder and cone are 15 cm and 8 cm, respectively. Find the volume (in cm^3) of the toy.683

Ans
✘ 1. 96π
✔ 2. 76π
✘ 3. 86π
✘ 4. 67π

Question ID : **441009621251**
Option 1 ID : **4410092439139**
Option 2 ID : **4410092439137**
Option 3 ID : **4410092439138**
Option 4 ID : **4410092439136**

QuickSarkari.com | WhatsApp Channel | Telegram: t.me/quick_sarkari

Q.19 **Find the volume of a frustum of height 10 cm and radii of the two ends 5 cm and 2 cm, respectively.**

Ans
✔ 1. 130π cm3
✗ 2. 150π cm3
✗ 3. 125π cm3
✗ 4. 120π cm3

Question ID : **441009593030**
Option 1 ID : **4410092327237**
Option 2 ID : **4410092327239**
Option 3 ID : **4410092327240**
Option 4 ID : **4410092327238**

Q.20 **A can complete a piece of work in 17 days. The portion of work remaining after A works alone for 7 days is:**

Ans
✗ 1. $\frac{6}{17}$
✔ 2. $\frac{10}{17}$
✗ 3. $\frac{7}{17}$
✗ 4. $\frac{11}{17}$

Question ID : **441009914097**
Option 1 ID : **4410093610642**
Option 2 ID : **4410093610639**
Option 3 ID : **4410093610641**
Option 4 ID : **4410093610640**

Section : **English Language and Comprehension**

Q.1 **Select the option that can be used as a one-word substitute for the given group of words.**

A person who refuses to obey the laws or rules of a society

Ans
✗ 1. Faithful
✗ 2. Authoritarian
✔ 3. Anarchist
✗ 4. Rightist

Question ID : **441009352151**
Option 1 ID : **4410091374956**
Option 2 ID : **4410091374955**
Option 3 ID : **4410091374954**
Option 4 ID : **4410091374957**

QuickSarkari.com | WhatsApp Channel | Telegram: t.me/quick_sarkari

Q.2 **In the following sentence, choose the word that can replace the underlined phrase.**

After his retirement, he chose to live as a <u>person whose life is away from society and people</u>.

Ans
✗ 1. refugee
✗ 2. nomad
✗ 3. pioneer
✓ 4. recluse

Question ID : **4410091127843**
Option 1 ID : **4410094446934**
Option 2 ID : **4410094446932**
Option 3 ID : **4410094446935**
Option 4 ID : **4410094446933**

Q.3 **Select the most appropriate option to fill in the blank.**

I gifted _____ umbrella to the old man.

Ans
✗ 1. a
✗ 2. the
✓ 3. an
✗ 4. No article required

Question ID : **441009273836**
Option 1 ID : **4410091063695**
Option 2 ID : **4410091063697**
Option 3 ID : **4410091063696**
Option 4 ID : **4410091063698**

Q.4 **Fill in the blank with the correct option.**

The company _____ a new policy regarding employee benefits.

Ans
✓ 1. implemented
✗ 2. travelled
✗ 3. celebrated
✗ 4. cooked

Question ID : **4410091027564**
Option 1 ID : **4410094061790**
Option 2 ID : **4410094061788**
Option 3 ID : **4410094061787**
Option 4 ID : **4410094061789**

QuickSarkari.com | WhatsApp Channel | Telegram: t.me/quick_sarkari

Q.5 **Replace the underlined word segment with the correct idiom.**

The final date of the workshop is <u>not yet decided</u>.

Ans

✗ 1. set in stone

✓ 2. up in the air

✗ 3. under the weather

✗ 4. on the cards

Question ID : **4410091555205**
Option 1 ID : **4410096143420**
Option 2 ID : **4410096143421**
Option 3 ID : **4410096143422**
Option 4 ID : **4410096143419**

Q.6 **Select the most appropriate option to fill in the blank.**

Amitabh Bachchan is _____ for his iconic roles.

Ans

✗ 1. raised

✓ 2. celebrated

✗ 3. forgiven

✗ 4. abated

Question ID : **4410091524616**
Option 1 ID : **4410096021681**
Option 2 ID : **4410096021679**
Option 3 ID : **4410096021680**
Option 4 ID : **4410096021682**

Q.7 **Parts of a sentence are given below in jumbled order. Arrange the parts in the correct order to form a meaningful sentence.**

A. well-rounded and fulfilling life
B. of success are significant, and
C. both external and internal measures
D. they can coexist to create a

Ans

✗ 1. DCBA

✗ 2. BDAC

✓ 3. CBDA

✗ 4. ABCD

Question ID : **4410091534550**
Option 1 ID : **4410096061449**
Option 2 ID : **4410096061448**
Option 3 ID : **4410096061447**
Option 4 ID : **4410096061450**

QuickSarkari.com | WhatsApp Channel | Telegram: t.me/quick_sarkari

Q.8 **Identify the word which is not spelt correctly.**
The teacher appreciated the student's dilligence, creativity, and enthusiasm.

Ans
✗ 1. appreciated
✗ 2. enthusiasm
✓ 3. dilligence
✗ 4. creativity

Question ID : **4410091555148**
Option 1 ID : **4410096143238**
Option 2 ID : **4410096143237**
Option 3 ID : **4410096143235**
Option 4 ID : **4410096143236**

Q.9 **Select the most appropriate article to fill in the blank. If no article is needed, select 'No article required'.**

It takes two to make _____ quarrel.2988

Ans
✗ 1. No article required
✓ 2. a
✗ 3. the
✗ 4. an

Question ID : **441009498242**
Option 1 ID : **4410091948180**
Option 2 ID : **4410091948182**
Option 3 ID : **4410091948183**
Option 4 ID : **4410091948181**

Q.10 **Parts of the given sentence have been underlined. One of them contains a spelling error. The underlined parts are given as options with some changes. Select the option that correctly rectifies the error.**

There is some concollation for fans because the team still stands a chance of winning the local championship.

Ans
✗ 1. beceause
✓ 2. consolation
✗ 3. chempionsship
✗ 4. wiining

Question ID : **4410091385315**
Option 1 ID : **4410095472001**
Option 2 ID : **4410095472000**
Option 3 ID : **4410095472003**
Option 4 ID : **4410095472002**

QuickSarkari.com | WhatsApp Channel | Telegram: t.me/quick_sarkari

Q.11 Select the most appropriate synonym of the underlined word in the given sentence.

His decision was <u>irrevocable</u>.

Ans
✗ 1. irrespective
✓ 2. irreversible
✗ 3. irrelevant
✗ 4. irregular

Question ID : **4410091529524**
Option 1 ID : **4410096041183**
Option 2 ID : **4410096041185**
Option 3 ID : **4410096041186**
Option 4 ID : **4410096041184**

Q.12 Select the most appropriate option that can substitute the underlined segment in the given proverb.

It's a risk, but the reward could be great. I say you go for it. <u>Fortune governs the old.</u>

Ans
✗ 1. Fortune is not for the bolds.
✓ 2. Fortune favors the bold.
✗ 3. Fortune is all that matters.
✗ 4. Fortune dictates the enemies.

Question ID : **4410091412453**
Option 1 ID : **4410095578837**
Option 2 ID : **4410095578836**
Option 3 ID : **4410095578838**
Option 4 ID : **4410095578839**

Q.13 Parts of a sentence are given below. While the first part is in the correct place, the remaining parts (labelled P, Q, R and S) are jumbled up. Arrange the parts in the correct order to form a meaningful and coherent sentence.

1. Approximately 90 percent
P. occurs in the stratosphere,
Q. to approximately 50 km above the earth's surface
R. of the atmosphere's ozone
S. the region extending from 10 to 18 km6758

Ans
✗ 1. RSQP
✗ 2. PSRQ
✗ 3. RPQS
✓ 4. RPSQ

Question ID : **441009434414**
Option 1 ID : **4410091697174**
Option 2 ID : **4410091697177**
Option 3 ID : **4410091697176**
Option 4 ID : **4410091697175**

Q.14 Select the most appropriate option to fill in the blank.

Corbett's expertise as a tracker of man-eating tigers and leopards _____ him great respect.

Ans
✗ 1. expected
✗ 2. abided
✗ 3. acquired
✓ 4. earned

Question ID : **4410091524608**
Option 1 ID : **4410096021648**
Option 2 ID : **4410096021650**
Option 3 ID : **4410096021649**
Option 4 ID : **4410096021647**

Q.15 Select the option that is the most appropriate antonym of the highlighted word in the given sentence.
His explanation was **cryptic** and hard to follow.

Ans
✗ 1. mysterious
✗ 2. brief
✓ 3. clear
✗ 4. puzzling

Question ID : **4410091603206**
Option 1 ID : **4410096332021**
Option 2 ID : **4410096332023**
Option 3 ID : **4410096332020**
Option 4 ID : **4410096332022**

Quick Sarkari

Comprehension:

Read the given passage carefully and answer the following questions.

Rapid urbanization and the rise of high-rise buildings have made cities around the world more vulnerable to earthquakes, a problem particularly acute in seismically active regions. In many places, including parts of India, urban planning has not kept pace with the construction boom, leading to buildings that may not be adequately prepared to withstand a major seismic event. While India's seismic risk varies by region, the rapid growth of high-rises, often built without rigorous enforcement of building codes, presents a significant risk to millions of people. This lack of proactive planning puts communities in danger, as buildings and infrastructure could collapse during a severe quake. Japan, which faces a constant threat of earthquakes, offers a model for effective urban planning. The country's solution lies in a combination of strict building codes and innovative engineering. A key technique is base isolation, where buildings are constructed on flexible pads or bearings that absorb the ground's shaking, isolating the structure from seismic energy. Additionally, engineers use dampers, or shock absorbers, within the building's frame to dissipate energy from an earthquake, preventing the building from swaying too much. These technologies are not only a requirement for new construction but are also being retrofitted into older buildings. This proactive, technology-driven approach ensures that Japanese cities are built to coexist with seismic activity, offering a crucial lesson in resilience for other nations facing similar risks.

SubQuestion No : 16

Q.16 What is the correct tone for the passage?

Ans

✗ 1. Humorous and satirical

✓ 2. Critical and cautionary

✗ 3. Optimistic and celebratory

✗ 4. Indifferent and detached

Question ID : **4410091302360**
Option 1 ID : **4410095141355**
Option 2 ID : **4410095141353**
Option 3 ID : **4410095141354**
Option 4 ID : **4410095141352**

QuickSarkari

Comprehension:

Read the given passage carefully and answer the following questions.

Rapid urbanization and the rise of high-rise buildings have made cities around the world more vulnerable to earthquakes, a problem particularly acute in seismically active regions. In many places, including parts of India, urban planning has not kept pace with the construction boom, leading to buildings that may not be adequately prepared to withstand a major seismic event. While India's seismic risk varies by region, the rapid growth of high-rises, often built without rigorous enforcement of building codes, presents a significant risk to millions of people. This lack of proactive planning puts communities in danger, as buildings and infrastructure could collapse during a severe quake. Japan, which faces a constant threat of earthquakes, offers a model for effective urban planning. The country's solution lies in a combination of strict building codes and innovative engineering. A key technique is base isolation, where buildings are constructed on flexible pads or bearings that absorb the ground's shaking, isolating the structure from seismic energy. Additionally, engineers use dampers, or shock absorbers, within the building's frame to dissipate energy from an earthquake, preventing the building from swaying too much. These technologies are not only a requirement for new construction but are also being retrofitted into older buildings. This proactive, technology-driven approach ensures that Japanese cities are built to coexist with seismic activity, offering a crucial lesson in resilience for other nations facing similar risks.

SubQuestion No : 17

Q.17 What is the primary structure of the passage?

Ans

✗ 1. Compare and contrast

✗ 2. Chronological

✗ 3. Cause and effect

✓ 4. Problem and solution

Question ID : **4410091302361**
Option 1 ID : **4410095141358**
Option 2 ID : **4410095141356**
Option 3 ID : **4410095141359**
Option 4 ID : **4410095141357**

QuickSarkari

Comprehension:

Read the given passage carefully and answer the following questions.

Rapid urbanization and the rise of high-rise buildings have made cities around the world more vulnerable to earthquakes, a problem particularly acute in seismically active regions. In many places, including parts of India, urban planning has not kept pace with the construction boom, leading to buildings that may not be adequately prepared to withstand a major seismic event. While India's seismic risk varies by region, the rapid growth of high-rises, often built without rigorous enforcement of building codes, presents a significant risk to millions of people. This lack of proactive planning puts communities in danger, as buildings and infrastructure could collapse during a severe quake. Japan, which faces a constant threat of earthquakes, offers a model for effective urban planning. The country's solution lies in a combination of strict building codes and innovative engineering. A key technique is base isolation, where buildings are constructed on flexible pads or bearings that absorb the ground's shaking, isolating the structure from seismic energy. Additionally, engineers use dampers, or shock absorbers, within the building's frame to dissipate energy from an earthquake, preventing the building from swaying too much. These technologies are not only a requirement for new construction but are also being retrofitted into older buildings. This proactive, technology-driven approach ensures that Japanese cities are built to coexist with seismic activity, offering a crucial lesson in resilience for other nations facing similar risks.

SubQuestion No : 18

Q.18 Which of the following facts can be inferred from the passage?

Ans

✗ 1. Older buildings in Japan are not being updated with new safety features.

✗ 2. Japan's urban planning is less concerned with seismic safety than India's.

✗ 3. The majority of Indian cities are located in high seismic risk zones.

✓ 4. The enforcement of building codes in India is a significant challenge.

Question ID : **4410091302362**
Option 1 ID : **4410095141360**
Option 2 ID : **4410095141361**
Option 3 ID : **4410095141363**
Option 4 ID : **4410095141362**

QuickSarkari

Comprehension:

Read the given passage carefully and answer the following questions.

Rapid urbanization and the rise of high-rise buildings have made cities around the world more vulnerable to earthquakes, a problem particularly acute in seismically active regions. In many places, including parts of India, urban planning has not kept pace with the construction boom, leading to buildings that may not be adequately prepared to withstand a major seismic event. While India's seismic risk varies by region, the rapid growth of high-rises, often built without rigorous enforcement of building codes, presents a significant risk to millions of people. This lack of proactive planning puts communities in danger, as buildings and infrastructure could collapse during a severe quake. Japan, which faces a constant threat of earthquakes, offers a model for effective urban planning. The country's solution lies in a combination of strict building codes and innovative engineering. A key technique is base isolation, where buildings are constructed on flexible pads or bearings that absorb the ground's shaking, isolating the structure from seismic energy. Additionally, engineers use dampers, or shock absorbers, within the building's frame to dissipate energy from an earthquake, preventing the building from swaying too much. These technologies are not only a requirement for new construction but are also being retrofitted into older buildings. This proactive, technology-driven approach ensures that Japanese cities are built to coexist with seismic activity, offering a crucial lesson in resilience for other nations facing similar risks.

SubQuestion No : 19

Q.19 Based on the passage, what is the best synonym for "resilience"?

Ans

✗ 1. Vulnerability

✗ 2. Fragility

✓ 3. Adaptability

✗ 4. Rigid

Question ID : **4410091302363**
Option 1 ID : **4410095141365**
Option 2 ID : **4410095141366**
Option 3 ID : **4410095141364**
Option 4 ID : **4410095141367**

QuickSarkari

Comprehension:

Read the given passage carefully and answer the following questions.

Rapid urbanization and the rise of high-rise buildings have made cities around the world more vulnerable to earthquakes, a problem particularly acute in seismically active regions. In many places, including parts of India, urban planning has not kept pace with the construction boom, leading to buildings that may not be adequately prepared to withstand a major seismic event. While India's seismic risk varies by region, the rapid growth of high-rises, often built without rigorous enforcement of building codes, presents a significant risk to millions of people. This lack of proactive planning puts communities in danger, as buildings and infrastructure could collapse during a severe quake. Japan, which faces a constant threat of earthquakes, offers a model for effective urban planning. The country's solution lies in a combination of strict building codes and innovative engineering. A key technique is base isolation, where buildings are constructed on flexible pads or bearings that absorb the ground's shaking, isolating the structure from seismic energy. Additionally, engineers use dampers, or shock absorbers, within the building's frame to dissipate energy from an earthquake, preventing the building from swaying too much. These technologies are not only a requirement for new construction but are also being retrofitted into older buildings. This proactive, technology-driven approach ensures that Japanese cities are built to coexist with seismic activity, offering a crucial lesson in resilience for other nations facing similar risks.

SubQuestion No : 20

Q.20 Identify an appropriate title for the passage.

Ans

✗ 1. The Beautiful Marvels of Japanese Architecture

✗ 2. The Dangers of Urbanization in High-Risk Earthquake Zones

✓ 3. Japan's Proactive Earthquake Proof Urban Planning

✗ 4. Innovative Engineering in the Modern Age

Question ID : **4410091302364**
Option 1 ID : **4410095141370**
Option 2 ID : **4410095141368**
Option 3 ID : **4410095141371**
Option 4 ID : **4410095141369**

Section : **Hindi Language and Comprehension**

Q.1 "काला अक्षर भैंस बराबर"- लोकोक्ति का अर्थ बताइए-

Ans

✓ 1. अनपढ़ होना

✗ 2. अदूरदर्शी होना

✗ 3. समदर्शी होना

✗ 4. छिद्रान्वेषी होना

Question ID : **4410091618399**
Option 1 ID : **4410096392469**
Option 2 ID : **4410096392470**
Option 3 ID : **4410096392468**
Option 4 ID : **4410096392467**

Q.2 दिए गए वाक्यांश एक वाक्य के अभिन्न अंग हैं,जो क्रम से नहीं दिए गए हैं निम्नलिखित वाक्यांशों को सही क्रम में लगाइए-
1.गोरखपुर की किताबें पढ़ने का यत्न करने लगे हैं।
2.संध्या पूजा करने और गीता प्रेस
3.वैसे-वैसे वह भी किशन दा की तरह रोज मंदिर जाने,
4.जैसे-जैसे उम्र ढल रही है

Ans
✗ 1. 1,2,3,4
✗ 2. 2,1,4,3
✗ 3. 4,2,3,1
✓ 4. 4,3,2,1

Question ID : **4410096476 90**
Option 1 ID : **4410092544806**
Option 2 ID : **4410092544807**
Option 3 ID : **4410092544809**
Option 4 ID : **4410092544808**

Q.3 'बाँह गहे की लाज' लोकोक्ति का सही अर्थ क्या होगा?

Ans
✗ 1. हराम की कमाई बेकार जाती है ।
✓ 2. शरण में आए की रक्षा करनी चाहिए ।
✗ 3. विपत्ति में बुद्धि काम नहीं करती है ।
✗ 4. किसी की शह पाकर ही आदमी अकड़ दिखाता है ।

Question ID : **4410091624816**
Option 1 ID : **4410096417794**
Option 2 ID : **4410096417792**
Option 3 ID : **4410096417791**
Option 4 ID : **4410096417793**

Q.4 नीचे दिए गए वाक्य के किस भाग में वर्तनी संबंधी अशुद्धि है?
झौंपड़ी में एक साँप घुस आया ।

Ans
✓ 1. झौंपड़ी
✗ 2. में एक
✗ 3. साँप
✗ 4. घुस आया ।

Question ID : **4410091624819**
Option 1 ID : **4410096417803**
Option 2 ID : **4410096417804**
Option 3 ID : **4410096417805**
Option 4 ID : **4410096417806**

QuickSarkari.com | WhatsApp Channel | Telegram: t.me/quick_sarkari

Q.5 निम्नलिखित में से किस लोकोक्ति का अर्थ संगत नहीं है?

Ans
✗ 1. कौड़ी नहीं गाँठ चले बाग की सैर - साधन नहीं तो काम क्यों करने लगे
✓ 2. आँख एक नहीं कजरौटा दस-दस - बुरे काम का बुरा फल
✗ 3. उसी की जूती उसी का सिर - जिसकी करनी, उसी को फल मिलता है
✗ 4. उलटी गंगा पहाड़ को चली- विपरीत बात होना

Question ID : **4410091626281**
Option 1 ID : **4410096423514**
Option 2 ID : **4410096423513**
Option 3 ID : **4410096423516**
Option 4 ID : **4410096423515**

Q.6 सही क्रिया-विशेषण का चयन कर वाक्य को पूर्ण कीजिए।
अभी बारिश हो रही थी .....धूप निकल आयी ।

Ans
✗ 1. मन से
✗ 2. भूल से
✓ 3. अचानक
✗ 4. चुपके से

Question ID : **4410091253889**
Option 1 ID : **4410094948613**
Option 2 ID : **4410094948612**
Option 3 ID : **4410094948611**
Option 4 ID : **4410094948610**

Q.7 निम्न में से 'कहाँ राजा भोज कहाँ गंगू तेली' लोकोक्ति का सही अर्थ कौन सा है?

Ans
✓ 1. उच्च और साधारण की तुलना कैसी
✗ 2. शरीर है तो कष्ट भी रहेगा
✗ 3. दूर से चीज अच्छी लगती है
✗ 4. शत्रु का उपकार करना

Question ID : **4410091526512**
Option 1 ID : **4410096029169**
Option 2 ID : **4410096029166**
Option 3 ID : **4410096029167**
Option 4 ID : **4410096029168**

Q.8 निम्नलिखित वाक्य के रिक्त स्थान में रीतिवाचक क्रिया-विशेषण शब्द का प्रयोग करें -
'बस देर से मिली वह कार्यालय समय से नहीं पहुँचा।'

Ans
✗ 1. मत
✓ 2. इसलिए
✗ 3. केवल
✗ 4. आगे

Question ID : **4410091242636**
Option 1 ID : **4410094903896**
Option 2 ID : **4410094903895**
Option 3 ID : **4410094903897**
Option 4 ID : **4410094903898**

Q.9 मन और बुद्धि की सभी शक्तियों का संचय परमावश्यक था ।
उपर्युक्त रेखांकित शब्द का पर्यायवाची क्या होगा ?

Ans
✗ 1. विस्तार
✗ 2. ग्रहण
✓ 3. संकलन
✗ 4. संचार

Question ID : **4410091624857**
Option 1 ID : **4410096417957**
Option 2 ID : **4410096417958**
Option 3 ID : **4410096417956**
Option 4 ID : **4410096417955**

Q.10 निम्नांकित विकल्पों में से उचित कारक चिन्ह का चयन करके वाक्य पूर्ण करें-
बीती बातों को चिंता..... विषय बनाकर याद रखने..... आवश्यकता नहीं है।

Ans
✗ 1. की, का
✓ 2. का, की
✗ 3. ने , से
✗ 4. के, का

Question ID : **4410091312128**
Option 1 ID : **4410095180191**
Option 2 ID : **4410095180188**
Option 3 ID : **4410095180190**
Option 4 ID : **4410095180189**

Q.11 दिए गए वाक्य में उचित क्रिया शब्द का चयन करके रिक्त स्थान की पूर्ति करें -
दीक्षांत समारोह में मंच पर कदम रखते ही छात्र के मन में खुशी की लहर -----गई।

Ans
✗ 1. दमक
✗ 2. मचल
✗ 3. चमक
✓ 4. दौड़

Question ID : **4410091547171**
Option 1 ID : **4410096111560**
Option 2 ID : **4410096111559**
Option 3 ID : **4410096111557**
Option 4 ID : **4410096111558**

QuickSarkari.com | WhatsApp Channel | Telegram: t.me/quick_sarkari

Q.12 निम्न में से 'रहे महमूद के अंडा देवे मसूद के' लोकोक्ति का सही अर्थ कौन-सा है ?

Ans
✗ 1. अयोग्य व्यक्ति का चालाक होना
✓ 2. खाना किसी का, काम किसी का
✗ 3. दूसरों के लिए मर मिटना
✗ 4. विपत्ति अकेले नहीं आती

Question ID : **4410091626349**
Option 1 ID : **4410096423787**
Option 2 ID : **4410096423786**
Option 3 ID : **4410096423788**
Option 4 ID : **4410096423785**

Q.13 निम्नलिखित मुहावरे का अर्थ बताएं -
'आँख का काजल'

Ans
✓ 1. अत्यंत प्रिय
✗ 2. इशारा करना
✗ 3. सामने ताकना
✗ 4. झपकी आना

Question ID : **4410091530499**
Option 1 ID : **4410096045079**
Option 2 ID : **4410096045081**
Option 3 ID : **4410096045080**
Option 4 ID : **4410096045082**

Q.14 निम्नलिखित विकल्पों में से कौन-सा वाक्य क्रम सही है?

Ans
✗ 1. आकर चला गया एक मेहमान कल।
✓ 2. एक मेहमान कल आकर चला गया।
✗ 3. मेहमान कल आकर चला गया एक।
✗ 4. चला गया एक मेहमान कल आकर।

Question ID : **4410091527826**
Option 1 ID : **4410096034505**
Option 2 ID : **4410096034504**
Option 3 ID : **4410096034506**
Option 4 ID : **4410096034503**

Q.15 निम्नलिखित वाक्य को उचित कारक चिह्न से पूर्ण करें।
'मोहन _____ मुर्गियाँ रोज़ अंडे देती हैं ।'

Ans
✗ 1. का
✗ 2. से
✗ 3. के
✓ 4. की

Question ID : **4410091237762**
Option 1 ID : **4410094884577**
Option 2 ID : **4410094884578**
Option 3 ID : **4410094884576**
Option 4 ID : **4410094884579**

QuickSarkari.com | WhatsApp Channel | Telegram: t.me/quick_sarkari

Comprehension:

निम्नलिखित गद्यांश को ध्यानपूर्वक पढ़कर पूछे गये प्रश्नों के सही उत्तर दीजिए।
सहयोग की भावना मानवीय संबंधों का प्राणसूत्र है जो व्यक्तिगत सीमाओं को सामूहिक ऊर्जा में रूपांतरित करती है। यह न केवल संघर्षों का अंत करती है बल्कि रचनात्मकता को भी पोषित करती है। स्वार्थी युग में सहयोग ही समाज को विघटन से बचाता है तथा समृद्धि का आधार बनाता है। प्रकृति में सहयोग सर्वत्र विद्यमान है चींटियाँ सामूहिक भोजन संग्रह करती हैं जबकि पक्षी झुंड में प्रवास करते हैं। मानव इतिहास में सहयोग ने चमत्कार रचे हैं। भगत सिंह जैसे क्रांतिकारियों का सहयोग स्वतंत्रता को गति प्रदान की। वैज्ञानिक अनुसंधान में अंतरराष्ट्रीय सहयोग ने चंद्रयान जैसी उपलब्धियाँ हासिल कीं। खेलक्षेत्र में खिलाड़ियों का आपसी सहयोग ही विजय का मंत्र बनता है। ग्रामीण अर्थव्यवस्था में सहकारी समितियाँ किसानों को सशक्त बनाती हैं। सहयोग विविध संस्कृतियों को एक मंच पर लाता है तथा वैश्विक शांति सुनिश्चित करता है। संयुक्त राष्ट्र जैसे संगठन सहयोग पर ही आधारित हैं। शिक्षा में गुरु-शिष्य परंपरा सहयोग का प्रतीक है। आपदा काल में पड़ोसी सहयोग जीवनदायी सिद्ध होता है। अंततः सहयोग की भावना ही सच्ची शक्ति है जो व्यक्ति को महान बनाती है तथा मानवजाति को एक परिवार के रूप में एकीकृत करती है।

SubQuestion No : 16

Q.16 सहयोग की भावना को गद्यांश में क्या कहा गया है?

Ans

✗ 1. व्यक्तिगत शक्ति का स्रोत

✗ 2. स्वार्थ का आधार

✓ 3. मानवीय संबंधों का प्राणसूत्र

✗ 4. संघर्ष का कारण

Question ID : **4410091626930**
Option 1 ID : **4410096426042**
Option 2 ID : **4410096426045**
Option 3 ID : **4410096426044**
Option 4 ID : **4410096426043**

Comprehension:

निम्नलिखित गद्यांश को ध्यानपूर्वक पढ़कर पूछे गये प्रश्नों के सही उत्तर दीजिए।
सहयोग की भावना मानवीय संबंधों का प्राणसूत्र है जो व्यक्तिगत सीमाओं को सामूहिक ऊर्जा में रूपांतरित करती है। यह न केवल संघर्षों का अंत करती है बल्कि रचनात्मकता को भी पोषित करती है। स्वार्थी युग में सहयोग ही समाज को विघटन से बचाता है तथा समृद्धि का आधार बनाता है। प्रकृति में सहयोग सर्वत्र विद्यमान है चींटियाँ सामूहिक भोजन संग्रह करती हैं जबकि पक्षी झुंड में प्रवास करते हैं। मानव इतिहास में सहयोग ने चमत्कार रचे हैं। भगत सिंह जैसे क्रांतिकारियों का सहयोग स्वतंत्रता को गति प्रदान की। वैज्ञानिक अनुसंधान में अंतरराष्ट्रीय सहयोग ने चंद्रयान जैसी उपलब्धियाँ हासिल कीं। खेलक्षेत्र में खिलाड़ियों का आपसी सहयोग ही विजय का मंत्र बनता है। ग्रामीण अर्थव्यवस्था में सहकारी समितियाँ किसानों को सशक्त बनाती हैं। सहयोग विविध संस्कृतियों को एक मंच पर लाता है तथा वैश्विक शांति सुनिश्चित करता है। संयुक्त राष्ट्र जैसे संगठन सहयोग पर ही आधारित हैं। शिक्षा में गुरु-शिष्य परंपरा सहयोग का प्रतीक है। आपदा काल में पड़ोसी सहयोग जीवनदायी सिद्ध होता है। अंततः सहयोग की भावना ही सच्ची शक्ति है जो व्यक्ति को महान बनाती है तथा मानवजाति को एक परिवार के रूप में एकीकृत करती है।

SubQuestion No : 17

Q.17 स्वार्थी युग में सहयोग समाज को किससे बचाता है?

Ans

✓ 1. विघटन से

✗ 2. एकता से

✗ 3. प्रगति से

✗ 4. समृद्धि से

Question ID : **4410091626931**
Option 1 ID : **4410096426046**
Option 2 ID : **4410096426049**
Option 3 ID : **4410096426047**
Option 4 ID : **4410096426048**

Comprehension:

निम्नलिखित गद्यांश को ध्यानपूर्वक पढ़कर पूछे गये प्रश्नों के सही उत्तर दीजिए।
सहयोग की भावना मानवीय संबंधों का प्राणसूत्र है जो व्यक्तिगत सीमाओं को सामूहिक ऊर्जा में रूपांतरित करती है। यह न केवल संघर्षों का अंत करती है बल्कि रचनात्मकता को भी पोषित करती है। स्वार्थी युग में सहयोग ही समाज को विघटन से बचाता है तथा समृद्धि का आधार बनाता है। प्रकृति में सहयोग सर्वत्र विद्यमान है चींटियाँ सामूहिक भोजन संग्रह करती हैं जबकि पक्षी झुंड में प्रवास करते हैं। मानव इतिहास में सहयोग ने चमत्कार रचे हैं। भगत सिंह जैसे क्रांतिकारियों का सहयोग स्वतंत्रता को गति प्रदान की। वैज्ञानिक अनुसंधान में अंतरराष्ट्रीय सहयोग ने चंद्रयान जैसी उपलब्धियाँ हासिल कीं। खेलक्षेत्र में खिलाड़ियों का आपसी सहयोग ही विजय का मंत्र बनता है। ग्रामीण अर्थव्यवस्था में सहकारी समितियाँ किसानों को सशक्त बनाती हैं। सहयोग विविध संस्कृतियों को एक मंच पर लाता है तथा वैश्विक शांति सुनिश्चित करता है। संयुक्त राष्ट्र जैसे संगठन सहयोग पर ही आधारित हैं। शिक्षा में गुरु-शिष्य परंपरा सहयोग का प्रतीक है। आपदा काल में पड़ोसी सहयोग जीवनदायी सिद्ध होता है। अंततः सहयोग की भावना ही सच्ची शक्ति है जो व्यक्ति को महान बनाती है तथा मानवजाति को एक परिवार के रूप में एकीकृत करती है।

SubQuestion No : 18

Q.18 खेलक्षेत्र में सहयोग को क्या कहा गया है?

Ans

✔ 1. विजय का मंत्र

✘ 2. हार का कारण

✘ 3. व्यक्तिगत प्रयास

✘ 4. प्रतिस्पर्धा का अंत

Question ID : **4410091626932**
Option 1 ID : **4410096426052**
Option 2 ID : **4410096426051**
Option 3 ID : **4410096426053**
Option 4 ID : **4410096426050**

Comprehension:

निम्नलिखित गद्यांश को ध्यानपूर्वक पढ़कर पूछे गये प्रश्नों के सही उत्तर दीजिए।
सहयोग की भावना मानवीय संबंधों का प्राणसूत्र है जो व्यक्तिगत सीमाओं को सामूहिक ऊर्जा में रूपांतरित करती है। यह न केवल संघर्षों का अंत करती है बल्कि रचनात्मकता को भी पोषित करती है। स्वार्थी युग में सहयोग ही समाज को विघटन से बचाता है तथा समृद्धि का आधार बनाता है। प्रकृति में सहयोग सर्वत्र विद्यमान है चींटियाँ सामूहिक भोजन संग्रह करती हैं जबकि पक्षी झुंड में प्रवास करते हैं। मानव इतिहास में सहयोग ने चमत्कार रचे हैं। भगत सिंह जैसे क्रांतिकारियों का सहयोग स्वतंत्रता को गति प्रदान की। वैज्ञानिक अनुसंधान में अंतरराष्ट्रीय सहयोग ने चंद्रयान जैसी उपलब्धियाँ हासिल कीं। खेलक्षेत्र में खिलाड़ियों का आपसी सहयोग ही विजय का मंत्र बनता है। ग्रामीण अर्थव्यवस्था में सहकारी समितियाँ किसानों को सशक्त बनाती हैं। सहयोग विविध संस्कृतियों को एक मंच पर लाता है तथा वैश्विक शांति सुनिश्चित करता है। संयुक्त राष्ट्र जैसे संगठन सहयोग पर ही आधारित हैं। शिक्षा में गुरु-शिष्य परंपरा सहयोग का प्रतीक है। आपदा काल में पड़ोसी सहयोग जीवनदायी सिद्ध होता है। अंततः सहयोग की भावना ही सच्ची शक्ति है जो व्यक्ति को महान बनाती है तथा मानवजाति को एक परिवार के रूप में एकीकृत करती है।

SubQuestion No : 19

Q.19 ग्रामीण अर्थव्यवस्था में सहकारी समितियाँ किसको सशक्त बनाती हैं?

Ans

✔ 1. किसानों को

✘ 2. अधिकारियों को

✘ 3. मजदूरों को

✘ 4. व्यापारियों को

Question ID : **4410091626933**
Option 1 ID : **4410096426057**
Option 2 ID : **4410096426055**
Option 3 ID : **4410096426056**
Option 4 ID : **4410096426054**

Comprehension:

निम्नलिखित गद्यांश को ध्यानपूर्वक पढ़कर पूछे गये प्रश्नों के सही उत्तर दीजिए।
सहयोग की भावना मानवीय संबंधों का प्राणसूत्र है जो व्यक्तिगत सीमाओं को सामूहिक ऊर्जा में रूपांतरित करती है। यह न केवल संघर्षों का अंत करती है बल्कि रचनात्मकता को भी पोषित करती है। स्वार्थी युग में सहयोग ही समाज को विघटन से बचाता है तथा समृद्धि का आधार बनाता है। प्रकृति में सहयोग सर्वत्र विद्यमान है चींटियाँ सामूहिक भोजन संग्रह करती हैं जबकि पक्षी झुंड में प्रवास करते हैं। मानव इतिहास में सहयोग ने चमत्कार रचे हैं। भगत सिंह जैसे क्रांतिकारियों का सहयोग स्वतंत्रता को गति प्रदान की। वैज्ञानिक अनुसंधान में अंतरराष्ट्रीय सहयोग ने चंद्रयान जैसी उपलब्धियाँ हासिल कीं। खेलक्षेत्र में खिलाड़ियों का आपसी सहयोग ही विजय का मंत्र बनता है। ग्रामीण अर्थव्यवस्था में सहकारी समितियाँ किसानों को सशक्त बनाती हैं। सहयोग विविध संस्कृतियों को एक मंच पर लाता है तथा वैश्विक शांति सुनिश्चित करता है। संयुक्त राष्ट्र जैसे संगठन सहयोग पर ही आधारित हैं। शिक्षा में गुरु-शिष्य परंपरा सहयोग का प्रतीक है। आपदा काल में पड़ोसी सहयोग जीवनदायी सिद्ध होता है। अंततः सहयोग की भावना ही सच्ची शक्ति है जो व्यक्ति को महान बनाती है तथा मानवजाति को एक परिवार के रूप में एकीकृत करती है।

SubQuestion No : 20

Q.20 गद्यांश के अनुसार सहयोग की भावना क्या है?

Ans

✔ 1. सच्ची शक्ति

✘ 2. व्यक्तिगत शक्ति

✘ 3. नकली शक्ति

✘ 4. क्षणिक शक्ति

Question ID : **4410091626934**
Option 1 ID : **4410096426059**
Option 2 ID : **4410096426061**
Option 3 ID : **4410096426060**
Option 4 ID : **4410096426058**

Section : **Discipline1**

Q.1 Which of the following environmental factors does not affect the personality of a child?

Ans

✘ 1. School environment

✘ 2. Family

✘ 3. Peer group

✔ 4. Blood group

Question ID : **4410091570089**
Option 1 ID : **4410096201360**
Option 2 ID : **4410096201357**
Option 3 ID : **4410096201358**
Option 4 ID : **4410096201359**

QuickSarkari.com | WhatsApp Channel | Telegram: t.me/quick_sarkari

Q.2 If a child can walk upstairs with assistance and stack two to three cubes, the child is likely between which ages?

Ans
✗ 1. 6-8 months
✗ 2. 3-5 months
✓ 3. 15-18 months
✗ 4. 2-3 years

Question ID : **4410091611044**
Option 1 ID : **4410096363032**
Option 2 ID : **4410096363031**
Option 3 ID : **4410096363033**
Option 4 ID : **4410096363034**

Q.3 Which Constitutional Amendment in India made the Right to Education a fundamental right for children aged 6 to 14 years?

Ans
✓ 1. 86th Amendment Act, 2002
✗ 2. 73rd Amendment Act, 1992
✗ 3. 44th Amendment Act, 1978
✗ 4. 42nd Amendment Act, 1976

Question ID : **4410091624578**
Option 1 ID : **4410096416845**
Option 2 ID : **4410096416846**
Option 3 ID : **4410096416844**
Option 4 ID : **4410096416843**

Q.4 A child initially displays a difficult temperament but gradually becomes more sociable and resilient after forming a secure bond with a caregiver. Which personality characteristic does this developmental change best represent?

Ans
✗ 1. Integration
✓ 2. Dynamic
✗ 3. Consistency
✗ 4. Uniqueness

Question ID : **4410091631711**
Option 1 ID : **4410096445061**
Option 2 ID : **4410096445058**
Option 3 ID : **4410096445059**
Option 4 ID : **4410096445060**

QuickSarkari.com | WhatsApp Channel | Telegram: t.me/quick_sarkari

Q.5 **Which level of moral reasoning is associated with concern for law, order, and maintaining a stable social system?**

Ans

✔ 1. Conventional level

✘ 2. Postconventional level

✘ 3. Punishment-obedience level

✘ 4. Preconventional level

Question ID : **4410091601504**
Option 1 ID : **4410096325615**
Option 2 ID : **4410096325616**
Option 3 ID : **4410096325617**
Option 4 ID : **4410096325614**

Q.6 **A school implements a new curriculum unit focusing on resolving disputes non-violently and appreciating cultural diversity. According to peace education objectives, what is the primary anticipated impact on students?**

Ans

✘ 1. Improved memorization of historical dates

✘ 2. Mastery of complex mathematical concepts

✘ 3. Increased participation in sports activities

✔ 4. Development of empathy and cooperation

Question ID : **4410091604781**
Option 1 ID : **4410096338288**
Option 2 ID : **4410096338291**
Option 3 ID : **4410096338290**
Option 4 ID : **4410096338289**

Q.7 **Which of the following is considered an environmental factor affecting personality development?**

Ans

✔ 1. Family background

✘ 2. Eye color

✘ 3. Height

✘ 4. Blood type

Question ID : **4410091622546**
Option 1 ID : **4410096408960**
Option 2 ID : **4410096408961**
Option 3 ID : **4410096408963**
Option 4 ID : **4410096408962**

QuickSarkari.com | WhatsApp Channel | Telegram: t.me/quick_sarkari

Q.8 **In the context of contemporary Indian society, which strategy best promotes national integration through school education programs that emphasize shared cultural values and collaborative projects among students from diverse backgrounds?**

Ans
- ✗ 1. Hosting competitions based on regional languages
- ✗ 2. Focusing solely on textbook memorization
- ✗ 3. Arranging separate regional classes for students
- ✓ 4. Organizing intercultural exchange programs in schools

Question ID : **4410091678847**
Option 1 ID : **4410096623601**
Option 2 ID : **4410096623602**
Option 3 ID : **4410096623600**
Option 4 ID : **4410096623599**

Q.9 **Which of the following options best illustrates gender discrimination in contemporary Indian society?**

Ans
- ✗ 1. Encouraging women to participate in politics
- ✗ 2. Offering maternity and paternity leave equally
- ✗ 3. Providing equal access to education for all genders
- ✓ 4. Unequal pay for men and women doing the same job

Question ID : **4410091607471**
Option 1 ID : **4410096348858**
Option 2 ID : **4410096348859**
Option 3 ID : **4410096348857**
Option 4 ID : **4410096348856**

Q.10 **In the context of socialization, how does the family primarily contribute to the learner's development within society?**

Ans
- ✓ 1. By instilling foundational beliefs, customs and traditions from an early age
- ✗ 2. By introducing learners to formal subject knowledge
- ✗ 3. By promoting new technological skills and encouraging peer discussions
- ✗ 4. By facilitating participation in extra-curricular activities

Question ID : **4410091693246**
Option 1 ID : **4410096679119**
Option 2 ID : **4410096679122**
Option 3 ID : **4410096679120**
Option 4 ID : **4410096679121**

QuickSarkari.com | WhatsApp Channel | Telegram: t.me/quick_sarkari

Q.11 An inspector finds that a secondary school is using outdated, biased textbooks and offers guidance on selecting new materials. This advisory action aligns with which role outlined for education inspectors in the Mudaliar Commission's report?

Ans
✗ 1. Solely punitive supervision
✗ 2. Limiting inspector visits to urban schools
✗ 3. Focusing only on administrative audits
✓ 4. Advisory and supportive role for inspectors

Question ID : **4410091628813**
Option 1 ID : **4410096433399**
Option 2 ID : **4410096433400**
Option 3 ID : **4410096433401**
Option 4 ID : **4410096433398**

Q.12 If a curriculum aims to prepare students for both global citizenship and national responsibilities, which guiding principle is most relevant?

Ans
✓ 1. Integration
✗ 2. Uniformity
✗ 3. Isolation
✗ 4. Segmentation

Question ID : **4410091678843**
Option 1 ID : **4410096623585**
Option 2 ID : **4410096623584**
Option 3 ID : **4410096623586**
Option 4 ID : **4410096623583**

Q.13 During which stage of moral development do children typically start to value laws and authority as important for maintaining social order?

Ans
✗ 1. Pre-conventional stage
✗ 2. Intuitive-projective stage
✗ 3. Post-conventional stage
✓ 4. Conventional stage

Question ID : **4410091686554**
Option 1 ID : **4410096653063**
Option 2 ID : **4410096653065**
Option 3 ID : **4410096653064**
Option 4 ID : **4410096653062**

QuickSarkari.com | WhatsApp Channel | Telegram: t.me/quick_sarkari

Q.14 When examining the principle that development occurs from the center of the body outward, which term best describes this pattern in a child's growth?

Ans
✗ 1. Sequential development pattern
✗ 2. Cephalocaudal development pattern
✓ 3. Proximodistal development pattern
✗ 4. Linear development pattern

Question ID : **4410091628544**
Option 1 ID : **4410096432337**
Option 2 ID : **4410096432334**
Option 3 ID : **4410096432335**
Option 4 ID : **4410096432336**

Q.15 A government implements universal adult franchise, guaranteeing 'one man one vote' (Political Equality), but fails to address deep-rooted historical land distribution disparities. This scenario exemplifies a danger to political democracy, as articulated by Dr. B.R. Ambedkar, due to the persistence of:

Ans
✗ 1. Non-justifiable directive principles
✗ 2. Weak federal list structure
✓ 3. Socio-economic graded inequality
✗ 4. Legislative political apathy

Question ID : **4410091549590**
Option 1 ID : **4410096121063**
Option 2 ID : **4410096121064**
Option 3 ID : **4410096121062**
Option 4 ID : **4410096121061**

Q.16 What is the main objective of Universalisation of Elementary Education (UEE) under the RTE Act 2009?

Ans
✗ 1. To focus only on urban children for education
✗ 2. To introduce competitive exams at elementary level
✓ 3. To provide free and compulsory education to children aged 6 to 14 years
✗ 4. To make elementary education private and paid

Question ID : **4410091607611**
Option 1 ID : **4410096349406**
Option 2 ID : **4410096349407**
Option 3 ID : **4410096349404**
Option 4 ID : **4410096349405**

QuickSarkari.com | WhatsApp Channel | Telegram: t.me/quick_sarkari

Q.17 During childhood, a key principle stating that development moves from the head downward is _____.

Ans
✗ 1. Proximity rule
✗ 2. Sequential order
✓ 3. Cephalocaudal
✗ 4. Uniform pattern

Question ID : **4410091538555**
Option 1 ID : **4410096077485**
Option 2 ID : **4410096077487**
Option 3 ID : **4410096077486**
Option 4 ID : **4410096077488**

Q.18 Education helps promote peaceful coexistence among nations mainly by developing:

Ans
✗ 1. Strict national loyalty placed above all
✗ 2. Uniform political ideologies across the world
✓ 3. Attitudes of cooperation and mutual understanding
✗ 4. Competitive economic practices among nations

Question ID : **4410091680605**
Option 1 ID : **4410096630137**
Option 2 ID : **4410096630134**
Option 3 ID : **4410096630135**
Option 4 ID : **4410096630136**

Q.19 A state government refuses to fund elementary education for children aged 6 to 14. Which constitutional provision is being violated?

Ans
✗ 1. Article 45
✗ 2. Article 19
✗ 3. Article 30
✓ 4. Article 21A

Question ID : **4410091692789**
Option 1 ID : **4410096677202**
Option 2 ID : **4410096677199**
Option 3 ID : **4410096677200**
Option 4 ID : **4410096677201**

Q.20 The Preamble to the Indian Constitution declares India to be a:

Ans
✗ 1. Sovereign, Federal, Secular, Democratic Republic
✗ 2. Federal, Socialist, Secular, Democratic Republic
✗ 3. Socialist, Secular, Federal, Democratic Republic
✓ 4. Sovereign, Socialist, Secular, Democratic Republic

Question ID : **4410091550857**
Option 1 ID : **4410096125709**
Option 2 ID : **4410096125707**
Option 3 ID : **4410096125710**
Option 4 ID : **4410096125708**

QuickSarkari.com | WhatsApp Channel | Telegram: t.me/quick_sarkari

Section : **Discipline2**

Q.1 **When learners infer meanings of unfamiliar words from a poem without dictionary use, the literary text is functioning mainly as:**

Ans
- ✔ 1. Contextualized linguistic input
- ✘ 2. A source of fixed vocabulary lists
- ✘ 3. An exercise in translation accuracy
- ✘ 4. A model for prescriptive grammar

Question ID : **4410091638255**
Option 1 ID : **4410096470701**
Option 2 ID : **4410096470702**
Option 3 ID : **4410096470700**
Option 4 ID : **4410096470703**

Q.2 **Which type of peer tutoring involves older students helping younger students?**

Ans
- ✔ 1. Cross-age tutoring
- ✘ 2. Reciprocal peer tutoring
- ✘ 3. Same-age tutoring
- ✘ 4. Group tutoring

Question ID : **4410091681882**
Option 1 ID : **4410096634898**
Option 2 ID : **4410096634900**
Option 3 ID : **4410096634899**
Option 4 ID : **4410096634901**

Q.3 **What analytical distinction justifies transitioning from simple daily diary entries to a formal reflective journal for deeper self-understanding?**

Ans
- ✘ 1. Avoids emotional responses
- ✘ 2. Increases quantity of writing
- ✘ 3. Simplifies recording daily events
- ✔ 4. Enhances critical thought clarity

Question ID : **4410091557241**
Option 1 ID : **4410096151494**
Option 2 ID : **4410096151493**
Option 3 ID : **4410096151496**
Option 4 ID : **4410096151495**

QuickSarkari.com | WhatsApp Channel | Telegram: t.me/quick_sarkari

Q.4 **A school leader is designing a language policy to foster early literacy in a region where children speak different mother tongues at home. Which policy best reflects the scope of multilingualism in education?**

Ans

✔ 1. Promote additive bilingualism in classroom instruction

✘ 2. Enforce rapid transition to the dominant language

✘ 3. Discourage use of home languages in school

✘ 4. Focus only on monolingual assessment

Question ID : **4410091623520**
Option 1 ID : **4410096412666**
Option 2 ID : **4410096412664**
Option 3 ID : **4410096412665**
Option 4 ID : **4410096412667**

Q.5 **When guiding students to observe a local festival as part of cultural studies, what should the teacher emphasize to maximize learning?**

Ans

✘ 1. Focusing only on the festival's schedule.

✔ 2. Encouraging to note rituals with meanings.

✘ 3. Assigning reading about unrelated topics.

✘ 4. Teaching only through classroom lectures.

Question ID : **4410091641351**
Option 1 ID : **4410096482551**
Option 2 ID : **4410096482552**
Option 3 ID : **4410096482553**
Option 4 ID : **4410096482554**

Q.6 **What is the key benefit of multilingualism in early education?**

Ans

✔ 1. It promotes cognitive flexibility in children.

✘ 2. It encourages learning only one language.

✘ 3. It limits social interaction.

✘ 4. It increases physical and emotional strength.

Question ID : **4410091698404**
Option 1 ID : **4410096699277**
Option 2 ID : **4410096699280**
Option 3 ID : **4410096699279**
Option 4 ID : **4410096699278**

QuickSarkari.com | WhatsApp Channel | Telegram: t.me/quick_sarkari

Q.7 **A science teacher first demonstrates a chemical reaction before asking students to perform the experiment themselves. Which maxim is illustrated here?**

Ans

✗ 1. Focusing only on theoretical discussion

✓ 2. Proceeding from concrete to abstract

✗ 3. Starting with abstract to concrete

✗ 4. Assigning only textbook reading

Question ID : **4410091678969**
Option 1 ID : **4410096624087**
Option 2 ID : **4410096624085**
Option 3 ID : **4410096624086**
Option 4 ID : **4410096624088**

Q.8 **Which of the following best describes how celebrating an iconic cultural figure can contribute to an individual's understanding of self in a contemporary context?**

Ans

✗ 1. Requires adopting the figure's lifestyle without reflection.

✓ 2. Builds personal values via the figure's ideals and deeds.

✗ 3. Centers solely on the figure's historical significance only.

✗ 4. Demands rote learning of the figure's life history facts.

Question ID : **4410091624769**
Option 1 ID : **4410096417617**
Option 2 ID : **4410096417615**
Option 3 ID : **4410096417618**
Option 4 ID : **4410096417616**

Q.9 **What role do cultural icons play in bridging diverse communities today?**

Ans

✗ 1. Promoting exclusive narratives only

✓ 2. Reflecting marginalized voices and stories

✗ 3. Minimizing discussions on identity

✗ 4. Highlighting divisions among cultural groups

Question ID : **4410091553660**
Option 1 ID : **4410096137313**
Option 2 ID : **4410096137311**
Option 3 ID : **4410096137314**
Option 4 ID : **4410096137312**

QuickSarkari.com | WhatsApp Channel | Telegram: t.me/quick_sarkari

Q.10 **Which statement accurately reflects the nature of pedagogy in the classroom?**

Ans

✗ 1. Pedagogy is only about delivering content through lectures efficiently.

✓ 2. Pedagogy involves both teacher strategies and student participation actively.

✗ 3. Pedagogy means following textbooks strictly without any adaptation needed.

✗ 4. Pedagogy excludes assessment of learning and focuses solely on teaching.

Question ID : **4410091637277**
Option 1 ID : **4410096466647**
Option 2 ID : **4410096466646**
Option 3 ID : **4410096466649**
Option 4 ID : **4410096466648**

Q.11 **What is the primary medium of human communication?**

Ans

✗ 1. Culture

✓ 2. Language

✗ 3. Society

✗ 4. Gesture

Question ID : **4410091629364**
Option 1 ID : **4410096435539**
Option 2 ID : **4410096435538**
Option 3 ID : **4410096435540**
Option 4 ID : **4410096435541**

Q.12 **How does integrating peer tutoring as a pedagogical practice benefit the overall curriculum in diploma programs?**

Ans

✗ 1. Applies uniform teaching methods to all students.

✗ 2. Minimizes active student participation in class.

✗ 3. Prioritizes teacher-led instruction exclusively.

✓ 4. Addresses diverse needs via collaborative engagement.

Question ID : **4410091627326**
Option 1 ID : **4410096427591**
Option 2 ID : **4410096427593**
Option 3 ID : **4410096427592**
Option 4 ID : **4410096427590**

Q.13 **Which combination correctly matches a system of units with its basic length, mass, and time units?**

Ans

✗ 1. FPS: metre, kilogram, second

✓ 2. CGS: centimetre, gram, second

✗ 3. MKS: foot, pound, second

✗ 4. CGS: metre, kilogram, second

Question ID : **4410091612100**
Option 1 ID : **4410096367230**
Option 2 ID : **4410096367227**
Option 3 ID : **4410096367229**
Option 4 ID : **4410096367228**

QuickSarkari.com | WhatsApp Channel | Telegram: t.me/quick_sarkari

Q.14 **A diploma institute wants to update its curriculum to meet current industry needs. Which step should be prioritized to ensure the new curriculum remains relevant for learners and society?**

Ans

✗ 1. Prioritize updates to assessment methods and grading alone

✗ 2. Increase course content volume to include additional topics

✗ 3. Rely solely on previous years' syllabi for new curriculum

✓ 4. Consult stakeholders, experts, educators, and learners for input

Question ID : **4410091624615**
Option 1 ID : **4410096416994**
Option 2 ID : **4410096416992**
Option 3 ID : **4410096416993**
Option 4 ID : **4410096416991**

Q.15 **Which term best describes the role of iconic cultural figures in shaping a community's cultural world-view?**

Ans

✓ 1. Cultural agents – they influence values, beliefs, and practices within a society through their work, actions, or public presence.

✗ 2. Entertainment personalities – their role is limited to providing amusement without affecting cultural values.

✗ 3. Passive observers – since iconic figures have little or no influence on the cultural perspectives of the community.

✗ 4. Political leaders – because only elected officials determine cultural norms and development.

Question ID : **4410091650107**
Option 1 ID : **4410096516546**
Option 2 ID : **4410096516549**
Option 3 ID : **4410096516548**
Option 4 ID : **4410096516547**

Q.16 **A teacher in a multilingual classroom in Varanasi notices that some children code-mix during playground conversations. To comprehensively assess their language pragmatics, which combination of assessment sources would best provide reliable insights?**

Ans

✓ 1. Observation notes and peer feedback forms

✗ 2. Single end-term written exams

✗ 3. Only standardized oral reading tests

✗ 4. Exclusive use of home language logs

Question ID : **4410091606436**
Option 1 ID : **4410096344756**
Option 2 ID : **4410096344758**
Option 3 ID : **4410096344757**
Option 4 ID : **4410096344759**

QuickSarkari.com | WhatsApp Channel | Telegram: t.me/quick_sarkari

Q.17 How does Schopenhauer suggest humans can temporarily escape the 'blind will' that drives existence?

Ans

✗ 1. Through accumulation of material wealth

✓ 2. Through aesthetic contemplation of art

✗ 3. Through political participation

✗ 4. Through scientific experimentation

Question ID : **4410091681763**
Option 1 ID : **4410096634426**
Option 2 ID : **4410096634428**
Option 3 ID : **4410096634427**
Option 4 ID : **4410096634429**

Q.18 A teacher introduces a topic by first addressing learners' interests and prior mental readiness and later organizes the content in a logical sequence. This reflects the maxim of:

Ans

✗ 1. Direct to indirect

✓ 2. Psychological to logical

✗ 3. Known to unknown

✗ 4. Concrete to abstract

Question ID : **4410091636241**
Option 1 ID : **4410096462902**
Option 2 ID : **4410096462904**
Option 3 ID : **4410096462901**
Option 4 ID : **4410096462903**

Q.19 Why might an assessor use both oral storytelling activities and written tasks when evaluating a child's early literacy skills?

Ans

✓ 1. Different assessment modes reveal varied language and literacy strengths

✗ 2. Using only one type of activity eliminates all assessment bias

✗ 3. Oral activities are less significant for learning outcomes

✗ 4. Written tasks alone provide the most accurate evaluation evidence

Question ID : **4410091628731**
Option 1 ID : **4410096433070**
Option 2 ID : **4410096433073**
Option 3 ID : **4410096433072**
Option 4 ID : **4410096433071**

QuickSarkari.com | WhatsApp Channel | Telegram: t.me/quick_sarkari

Q.20 **What does the System Approach mainly aim to achieve in curriculum planning?**

Ans
✗ 1. Simple textbook based teaching without any modification
✓ 2. Logical coordination through input process output cycle
✗ 3. Teacher centred approach ignoring learner requirements
✗ 4. Random decision making about instructional strategies

Question ID : **4410091570648**
Option 1 ID : **4410096203576**
Option 2 ID : **4410096203575**
Option 3 ID : **4410096203578**
Option 4 ID : **4410096203577**

Section : **Discipline3**

Q.1 **A school tracks student attendance, learning outcomes, and teaching quality to improve performance. This represents:**

Ans
✓ 1. Educational accountability measures
✗ 2. Institutional effectiveness metrics
✗ 3. School quality assurance benchmarks
✗ 4. Academic performance indicators

Question ID : **4410091568392**
Option 1 ID : **4410096194855**
Option 2 ID : **4410096194852**
Option 3 ID : **4410096194853**
Option 4 ID : **4410096194854**

Q.2 **A candidate is preparing a formal report for a recruitment panel. While reviewing the sentence 'The staff has submitted their feedback promptly,' which revision best demonstrates an understanding of both grammatical correctness and contextual appropriateness for this setting?**

Ans
✓ 1. The staff members have submitted their feedback promptly.
✗ 2. The staff have submitted its feedback promptly.
✗ 3. The staff members has submitted their feedback promptly.
✗ 4. The staff has submitted their feedback promptly.

Question ID : **4410091623863**
Option 1 ID : **4410096414033**
Option 2 ID : **4410096414032**
Option 3 ID : **4410096414035**
Option 4 ID : **4410096414034**

QuickSarkari.com | WhatsApp Channel | Telegram: t.me/quick_sarkari

Q.3 **A school administrator is designing a program to help students navigate real-life social situations and adapt to changing group dynamics. According to Sternberg's triarchic theory, which type of intelligence should be emphasized in the curriculum to best prepare students for success in their socio-cultural context?**

Ans ✔ 1. Practical intelligence should be emphasized in the curriculum to best prepare students for success in their socio-cultural context.

✘ 2. General intelligence should be emphasized in the curriculum to best prepare students for success in their socio-cultural context.

✘ 3. Analytic intelligence should be emphasized in the curriculum to best prepare students for success in their socio-cultural context.

✘ 4. Creative intelligence should be emphasized in the curriculum to best prepare students for success in their socio-cultural context.

Question ID : **4410091623887**
Option 1 ID : **4410096414130**
Option 2 ID : **4410096414131**
Option 3 ID : **4410096414128**
Option 4 ID : **4410096414129**

Q.4 **Which of the following is a basic characteristic of a good educator?**

Ans ✘ 1. Focuses only on exams and ignores students' understanding of concepts

✘ 2. Concentrates only on administrative work and school management tasks

✘ 3. Relies entirely on textbooks without engaging students in activities

✔ 4. Shows care for students, communicates clearly, and encourages learning actively

Question ID : **4410091546569**
Option 1 ID : **4410096109157**
Option 2 ID : **4410096109155**
Option 3 ID : **4410096109156**
Option 4 ID : **4410096109158**

Q.5 **Students get different results measuring a desk using handspans. What should the teacher highlight next?**

Ans ✘ 1. Larger objects cannot be measured

✔ 2. Standard units are needed for accurate comparison

✘ 3. Measuring is not required in early classes

✘ 4. Non-standard units always give correct measurements

Question ID : **4410091568363**
Option 1 ID : **4410096194736**
Option 2 ID : **4410096194738**
Option 3 ID : **4410096194739**
Option 4 ID : **4410096194737**

QuickSarkari.com | WhatsApp Channel | Telegram: t.me/quick_sarkari

Q.6 **Which statement best describes English as a global language?**

Ans

✗ 1. It is the official language used by all countries.

✗ 2. It is the only language spoken across the world.

✓ 3. It is used as a common language in different countries.

✗ 4. It is spoken only within European countries.

Question ID : **4410091609339**
Option 1 ID : **4410096356280**
Option 2 ID : **4410096356282**
Option 3 ID : **4410096356281**
Option 4 ID : **4410096356283**

Q.7 **Which of the following is a practical example of 'repression' as a defense mechanism in students?**

Ans

✓ 1. The unconscious blocking of painful, anxiety-provoking memories

✗ 2. A student expressing anger openly toward peers after a setback

✗ 3. A student explaining poor performance by blaming the difficulty of the test

✗ 4. A student consciously deciding to ignore feedback from a teacher

Question ID : **4410091641764**
Option 1 ID : **4410096484133**
Option 2 ID : **4410096484136**
Option 3 ID : **4410096484135**
Option 4 ID : **4410096484134**

Q.8 **Imagine you are designing a mathematics lesson for primary children on the properties of rectangles. Which approach would best utilize the experimental and inductive nature of mathematics, according to the described method, and why?**

Ans

✗ 1. Explaining the definition of a rectangle to the students before engaging them in activities

✗ 2. Providing a worksheet for independent practice and recall of rectangle properties

✗ 3. Having students recite and discuss rectangle properties directly from the textbook

✓ 4. Facilitating students to measure sides and angles of rectangles to identify common properties

Question ID : **4410091623808**
Option 1 ID : **4410096413805**
Option 2 ID : **4410096413806**
Option 3 ID : **4410096413807**
Option 4 ID : **4410096413804**

QuickSarkari.com | WhatsApp Channel | Telegram: t.me/quick_sarkari

Q.9 **A student who blames the teacher for failing an exam instead of accepting poor preparation is using which defence mechanism?**

Ans
✗ 1. Repression
✗ 2. Rationalization
✗ 3. Sublimation
✓ 4. Projection

Question ID : **4410091606625**
Option 1 ID : **4410096345497**
Option 2 ID : **4410096345496**
Option 3 ID : **4410096345499**
Option 4 ID : **4410096345498**

Q.10 **A teacher encourages students to use newly learned words in sentences to make them part of their everyday speech. This activity aims to develop:**

Ans
✗ 1. Receptive vocabulary gained mainly through exposure and recognition
✗ 2. Vocabulary knowledge limited to recall of word meanings
✓ 3. Active vocabulary developed through purposeful and meaningful use
✗ 4. Vocabulary awareness without consistent communicative application

Question ID : **4410091546977**
Option 1 ID : **4410096110778**
Option 2 ID : **4410096110780**
Option 3 ID : **4410096110779**
Option 4 ID : **4410096110781**

Q.11 **In a classroom, a bell rings before lunch every day, and students start feeling hungry when they hear the bell. What type of learning is this an example of?**

Ans
✓ 1. Classical Conditioning
✗ 2. Insight Learning
✗ 3. Trial and Error
✗ 4. Operant Conditioning

Question ID : **4410091635484**
Option 1 ID : **4410096459956**
Option 2 ID : **4410096459957**
Option 3 ID : **4410096459955**
Option 4 ID : **4410096459958**

QuickSarkari.com | WhatsApp Channel | Telegram: t.me/quick_sarkari

Q.12 **Which of the following approaches is recommended for effective grammar teaching?**

Ans
✗ 1. Teaching grammar in isolation using sentence exercises
✗ 2. Avoiding any real-life communication practice
✓ 3. Teaching grammar in context, through discourse, and making it engaging
✗ 4. Focusing on grammatical rule and terminology

Question ID : **4410091576747**
Option 1 ID : **4410096227840**
Option 2 ID : **4410096227843**
Option 3 ID : **4410096227842**
Option 4 ID : **4410096227841**

Q.13 **Which of the following is a major factor shaping gendered roles in Indian society?**

Ans
✓ 1. Shared norms, traditions, and cultural practices
✗ 2. Government policies related to the economy
✗ 3. General weather patterns in a region
✗ 4. Individual choices made without clear reasons

Question ID : **4410091548417**
Option 1 ID : **4410096116369**
Option 2 ID : **4410096116371**
Option 3 ID : **4410096116368**
Option 4 ID : **4410096116370**

Q.14 **Which of the following characteristic does not make a school effective?**

Ans
✓ 1. Weak organization framework
✗ 2. Environment conducive to learning
✗ 3. Effective student welfare system
✗ 4. Strong and professional principal

Question ID : **4410091548086**
Option 1 ID : **4410096115051**
Option 2 ID : **4410096115050**
Option 3 ID : **4410096115052**
Option 4 ID : **4410096115049**

QuickSarkari.com | WhatsApp Channel | Telegram: t.me/quick_sarkari

Q.15 To assess whether Grade 3 children genuinely grasp the concept of "rectangle" beyond its textbook definition, the teacher should primarily employ questions that necessitate:

Ans

✗ 1. Reciting the standard geometric properties

✗ 2. Drawing varied shapes based on definitions

✓ 3. Application in unfamiliar contexts

✗ 4. Calculating area using the formula

Question ID : **4410091558428**
Option 1 ID : **4410096156109**
Option 2 ID : **4410096156110**
Option 3 ID : **4410096156111**
Option 4 ID : **4410096156112**

Q.16 How do alternative schools usually handle class structure?

Ans

✗ 1. Only indoor classroom teaching

✗ 2. No interaction between students of different ages

✓ 3. Flexibility in age, grades, and classroom space

✗ 4. Fixed age groups and grades for all subjects

Question ID : **4410091572429**
Option 1 ID : **4410096210666**
Option 2 ID : **4410096210665**
Option 3 ID : **4410096210667**
Option 4 ID : **4410096210664**

Q.17 A 7-year-old sees cartoon ads for sugary cereals and toys and quickly wants them, claiming they are “the best.” What does this illustrate?

Ans

✗ 1. Children make purchase choices only based on parental guidance

✗ 2. Children are unaffected by ads with cartoon characters

✗ 3. Children's decision-making skills are improved

✓ 4. Children are influenced through emotional appeal and character association

Question ID : **4410091548452**
Option 1 ID : **4410096116510**
Option 2 ID : **4410096116508**
Option 3 ID : **4410096116511**
Option 4 ID : **4410096116509**

QuickSarkari.com | WhatsApp Channel | Telegram: t.me/quick_sarkari

Q.18 **Which aspect is most essential when designing a school from scratch to reflect alternative education philosophies?**

Ans

✗ 1. Establishing traditional classroom hierarchies

✗ 2. Enforcing strict uniform regulations

✓ 3. Integrating community involvement in governance

✗ 4. Focusing on standardized curriculum delivery

Question ID : **4410091637749**
Option 1 ID : **4410096468575**
Option 2 ID : **4410096468577**
Option 3 ID : **4410096468574**
Option 4 ID : **4410096468576**

Q.19 **A facilitator notices the group is losing energy. Which approach best demonstrates adaptability in method and pacing?**

Ans

✗ 1. Ignoring group energy

✓ 2. Inserting an energiser activity

✗ 3. Continuing with the same plan

✗ 4. Focusing on the facilitator's opinions

Question ID : **4410091637883**
Option 1 ID : **4410096469092**
Option 2 ID : **4410096469090**
Option 3 ID : **4410096469091**
Option 4 ID : **4410096469093**

Q.20 **A teacher ensures fair evaluation and treats all students equally. This reflects:**

Ans

✗ 1. Maintaining procedural consistency in classroom management practices

✗ 2. Standardizing instructional delivery to ensure uniform learning outcomes

✓ 3. Adhering to professional ethical principles in assessment and interaction

✗ 4. Implementing impartial administrative norms for academic accountability

Question ID : **4410091568385**
Option 1 ID : **4410096194824**
Option 2 ID : **4410096194826**
Option 3 ID : **4410096194825**
Option 4 ID : **4410096194827**

Section : **Discipline4**

QuickSarkari.com | WhatsApp Channel | Telegram: t.me/quick_sarkari

Q.1 **Why is it important to analyze a social studies textbook before using it for teaching?**

Ans
✗ 1. To check the price of the book

✗ 2. To ensure it is the thickest book available

✓ 3. To ensure content and curriculum fit

✗ 4. To see if it has colorful pictures

Question ID : **4410091687729**
Option 1 ID : **4410096657703**
Option 2 ID : **4410096657705**
Option 3 ID : **4410096657702**
Option 4 ID : **4410096657704**

Q.2 **Which aspect distinguishes social sciences from social studies?**

Ans
✗ 1. Social sciences focus on theoretical analysis, whereas social studies focus on memorization.

✗ 2. Social sciences are taught only at higher levels, whereas social studies are taught at primary levels.

✓ 3. Social sciences are discipline-based, whereas social studies are integrated for teaching.

✗ 4. Social sciences exclude real-life applications, whereas social studies include them.

Question ID : **4410091661483**
Option 1 ID : **4410096559517**
Option 2 ID : **4410096559518**
Option 3 ID : **4410096559516**
Option 4 ID : **4410096559519**

Q.3 **Developing scientific temper in EVS primarily involves:**

Ans
✗ 1. Blind acceptance of facts

✗ 2. Learning only from teachers

✓ 3. Observation and inquiry

✗ 4. Avoiding experimentation

Question ID : **4410091687510**
Option 1 ID : **4410096656823**
Option 2 ID : **4410096656824**
Option 3 ID : **4410096656822**
Option 4 ID : **4410096656825**

Q.4 **Which action best exemplifies administrative leadership in a school context?**

Ans
✗ 1. Supervising sports activities

✗ 2. Designing classroom lesson plans

✓ 3. Establishing efficient operational systems

✗ 4. Providing one-on-one tutoring

Question ID : **4410091641247**
Option 1 ID : **4410096482144**
Option 2 ID : **4410096482141**
Option 3 ID : **4410096482142**
Option 4 ID : **4410096482143**

QuickSarkari.com | WhatsApp Channel | Telegram: t.me/quick_sarkari

Q.5 **Which describes a potential societal need for liberalization in education?**

Ans

✗ 1. To restrict international student exchange

✗ 2. To reduce private sector involvement

✗ 3. To limit technology adoption in schools

✓ 4. To allow for more diverse educational opportunities

Question ID : **4410091627642**
Option 1 ID : **4410096428778**
Option 2 ID : **4410096428779**
Option 3 ID : **4410096428780**
Option 4 ID : **4410096428777**

Q.6 **A teacher is planning a project-based learning activity where students must investigate local history. How can textbooks best be utilized to support this activity within the teaching-learning process?**

Ans

✗ 1. As the only source of information for completing the project work

✗ 2. Primarily for daily instruction unrelated to the project activity

✓ 3. As a foundational resource for background information and key concepts

✗ 4. Only for assessment purposes at the end of the learning activity

Question ID : **4410091681895**
Option 1 ID : **4410096634951**
Option 2 ID : **4410096634953**
Option 3 ID : **4410096634950**
Option 4 ID : **4410096634952**

Q.7 **Which tool is commonly used for lesson planning in the pedagogy of English at the primary level?**

Ans

✗ 1. Assessment rubric

✗ 2. Syllabus outline

✓ 3. Lesson plan template

✗ 4. Curriculum guide

Question ID : **4410091631516**
Option 1 ID : **4410096444283**
Option 2 ID : **4410096444281**
Option 3 ID : **4410096444280**
Option 4 ID : **4410096444282**

QuickSarkari.com | WhatsApp Channel | Telegram: t.me/quick_sarkari

Q.8 **Which of the following best evaluates the impact of including English as a compulsory subject in the curriculum on students from non-English speaking backgrounds?**

Ans
✗ 1. It automatically improves overall academic performance
✗ 2. It has no significant impact on their learning outcomes
✗ 3. It benefits only students planning higher studies abroad
✓ 4. It creates opportunities and challenges in linguistic equity

Question ID : **4410091681831**
Option 1 ID : **4410096634697**
Option 2 ID : **4410096634694**
Option 3 ID : **4410096634695**
Option 4 ID : **4410096634696**

Q.9 **Which of the following is an example of a low cost or no cost teaching-learning material?**

Ans
✗ 1. Ready-made globes
✗ 2. Digital projectors
✓ 3. Old newspapers
✗ 4. Smartboards

Question ID : **4410091687557**
Option 1 ID : **4410096657013**
Option 2 ID : **4410096657012**
Option 3 ID : **4410096657010**
Option 4 ID : **4410096657011**

Q.10 **Which feature best characterizes the Grammar Translation Method in English language teaching?**

Ans
✗ 1. Prioritizing oral fluency over accuracy
✗ 2. Total avoidance of learners' mother tongue
✗ 3. Use of communicative activities in class
✓ 4. Emphasis on translation between languages

Question ID : **4410091611712**
Option 1 ID : **4410096365697**
Option 2 ID : **4410096365698**
Option 3 ID : **4410096365696**
Option 4 ID : **4410096365695**

QuickSarkari.com | WhatsApp Channel | Telegram: t.me/quick_sarkari

Q.11 **Textbooks may limit learning because they:**

Ans

✗ 1. Promote independent material creation

✗ 2. Encourage critical thinking

✗ 3. Offer flexible content and methods

✓ 4. Control content, methods, and assessment

Question ID : **4410091572469**
Option 1 ID : **4410096210811**
Option 2 ID : **4410096210808**
Option 3 ID : **4410096210809**
Option 4 ID : **4410096210810**

Q.12 **What term describes the shared values, relationships, and practices within a school environment?**

Ans

✗ 1. Curriculum

✗ 2. Assessment

✗ 3. Discipline

✓ 4. School culture

Question ID : **4410091636022**
Option 1 ID : **4410096462061**
Option 2 ID : **4410096462064**
Option 3 ID : **4410096462063**
Option 4 ID : **4410096462062**

Q.13 **Conflict arises between a school and an NGO over project resource allocation (rigid positions taken). Which approach yields the most creative solutions?**

Ans

✗ 1. Establishing coercive external arbitration

✗ 2. Utilizing management domination

✓ 3. Engaging in interest-based negotiation

✗ 4. Adopting a middle ground compromise

Question ID : **4410091558768**
Option 1 ID : **4410096157464**
Option 2 ID : **4410096157461**
Option 3 ID : **4410096157463**
Option 4 ID : **4410096157462**

QuickSarkari.com | WhatsApp Channel | Telegram: t.me/quick_sarkari

Q.14 **Which objective best reflects a learner-centered principle in English language pedagogy?**

Ans
✗ 1. Prioritizing textbook completion
✗ 2. Emphasizing teacher-led lectures
✗ 3. Focusing on repetitive drills
✓ 4. Promoting critical language use

Question ID : **4410091637815**
Option 1 ID : **4410096468828**
Option 2 ID : **4410096468827**
Option 3 ID : **4410096468829**
Option 4 ID : **4410096468826**

Q.15 **Which of the following approach is modelling organisational values, strengthening productive school culture, building collaborative cultures, and creating structures for participating in school decisions?**

Ans
✗ 1. Constructivist
✓ 2. Culture centered
✗ 3. Performance centered
✗ 4. Mission centered

Question ID : **4410091548103**
Option 1 ID : **4410096115128**
Option 2 ID : **4410096115127**
Option 3 ID : **4410096115126**
Option 4 ID : **4410096115125**

Q.16 **What is one primary function of textbooks in the teaching–learning process?**

Ans
✗ 1. They determine teaching methods automatically
✗ 2. They evaluate student performance formally
✓ 3. They organize and sequence curriculum content
✗ 4. They control classroom interaction patterns

Question ID : **4410091623423**
Option 1 ID : **4410096412290**
Option 2 ID : **4410096412289**
Option 3 ID : **4410096412288**
Option 4 ID : **4410096412291**

QuickSarkari.com | WhatsApp Channel | Telegram: t.me/quick_sarkari

Q.17 **Which is a key benefit of using open-ended questions in classroom evaluation?**

Ans

✗ 1. They make grading faster.

✗ 2. They require students to choose from given options.

✗ 3. They limit students to memorized answers.

✓ 4. They encourage creative and critical thinking.

Question ID : **4410091687465**
Option 1 ID : **4410096656642**
Option 2 ID : **4410096656644**
Option 3 ID : **4410096656643**
Option 4 ID : **4410096656645**

Q.18 **In the context of social science education, which aspect reflects the primary scope of social studies as distinguished from social sciences?**

Ans

✗ 1. Developing new social theories through academic research.

✓ 2. Integrating disciplines to address societal issues in class.

✗ 3. Conducting specialized empirical studies in isolated fields.

✗ 4. Focusing exclusively on historical analysis.

Question ID : **4410091611853**
Option 1 ID : **4410096366253**
Option 2 ID : **4410096366251**
Option 3 ID : **4410096366252**
Option 4 ID : **4410096366254**

Q.19 **Which of the following is the primary purpose of unit planning in English language pedagogy?**

Ans

✗ 1. To select classroom seating arrangements

✓ 2. To organize lessons around one theme

✗ 3. To assign daily homework

✗ 4. To assess students' final grades

Question ID : **4410091622892**
Option 1 ID : **4410096410343**
Option 2 ID : **4410096410340**
Option 3 ID : **4410096410342**
Option 4 ID : **4410096410341**

QuickSarkari.com | WhatsApp Channel | Telegram: t.me/quick_sarkari

Q.20 **When a teacher uses simple daily items like bangles for counting or old calendars for reading to support learning, it shows a:**

Ans

✗ 1. Method that depends only on costly teaching products

✓ 2. Cost-saving method that makes learning easy and meaningful

✗ 3. System that prevents students from active involvement

✗ 4. Practice that avoids hands-on or practical materials

Question ID : **4410091548449**
Option 1 ID : **4410096116498**
Option 2 ID : **4410096116497**
Option 3 ID : **4410096116499**
Option 4 ID : **4410096116496**

Section : **Discipline5**

Q.1 **A teacher wants to review the school's science textbooks to support gender inclusivity. Which specific change would best address subtle gender bias in curriculum materials?**

Ans

✓ 1. Ensuring equal representation of male and female scientists in text and images

✗ 2. Expanding coverage of scientists from diverse cultural backgrounds

✗ 3. Emphasizing major scientific contributions based on historical impact

✗ 4. Using gender-neutral language while retaining existing visual examples

Question ID : **4410091626554**
Option 1 ID : **4410096424588**
Option 2 ID : **4410096424590**
Option 3 ID : **4410096424591**
Option 4 ID : **4410096424589**

Q.2 **A school is planning to implement an inclusive education policy. Which combination of practices would best ensure accurate disability identification and effective assessment for children with special needs in a culturally diverse classroom?**

Ans

✗ 1. Using teacher observations and standardized tests only

✗ 2. Using peer evaluation as the main assessment method

✓ 3. Using multidisciplinary teams and culturally responsive tools

✗ 4. Using only parental reports for identification

Question ID : **4410091683333**
Option 1 ID : **4410096640258**
Option 2 ID : **4410096640260**
Option 3 ID : **4410096640259**
Option 4 ID : **4410096640261**

QuickSarkari.com | WhatsApp Channel | Telegram: t.me/quick_sarkari

Q.3 **Which approach begins with a theoretical discussion before practical experience?**

Ans
✗ 1. Inquiry approach
✗ 2. Inductive approach
✗ 3. Project-based approach
✓ 4. Deductive approach

Question ID : **4410091633937**
Option 1 ID : **4410096453840**
Option 2 ID : **4410096453839**
Option 3 ID : **4410096453841**
Option 4 ID : **4410096453838**

Q.4 **A B.Ed trainee designs a lesson where students are first taught that metals generally conduct electricity. Then, they test different objects to check if they conduct electricity, including a wooden stick, a copper wire, a rubber band, and a plastic straw. What is the main goal of this lesson in terms of scientific reasoning?**

Ans
✗ 1. To encourage students to form new theories using inductive reasoning
✗ 2. To teach students to use analogical reasoning between materials
✓ 3. To help students apply deductive reasoning to verify a scientific law
✗ 4. To guide students in eliminating misconceptions through trial and error

Question ID : **4410091633882**
Option 1 ID : **4410096453619**
Option 2 ID : **4410096453620**
Option 3 ID : **4410096453618**
Option 4 ID : **4410096453621**

Q.5 **How does fun mathematics influence the learning environment?**

Ans
✓ 1. It fosters a close relationship between teachers and students without pressure
✗ 2. It imposes strict discipline on learners
✗ 3. It eliminates the use of games in learning
✗ 4. It encourages competition among students

Question ID : **4410091639246**
Option 1 ID : **4410096474545**
Option 2 ID : **4410096474548**
Option 3 ID : **4410096474547**
Option 4 ID : **4410096474546**

QuickSarkari.com | WhatsApp Channel | Telegram: t.me/quick_sarkari

Q.6 **What is a significant outcome for students participating in Eco-Clubs?**

Ans

✗ 1. Enhanced abilities in competitive exams.

✗ 2. Improved physical fitness.

✗ 3. Better understanding of global politics.

✓ 4. Positive shifts in attitudes towards the environment.

Question ID : **4410091639543**
Option 1 ID : **4410096475718**
Option 2 ID : **4410096475719**
Option 3 ID : **4410096475720**
Option 4 ID : **4410096475717**

Q.7 **In a lesson on number types, a teacher asks students to classify the following: 0, 2, -1, and 1/2. Which classification accurately matches each number according to standard school curricula?**

Ans

✓ 1. 0 is a whole number, 2 is a natural number, -1 is an integer, 1/2 is a rational number

✗ 2. 0 is a rational number, 2 is irrational, -1 is a whole number, 1/2 is an integer

✗ 3. 0 is a natural number, 2 is a rational number, -1 is a real number, 1/2 is an irrational number

✗ 4. 0 is an integer, 2 is a whole number, -1 is irrational, 1/2 is a natural number

Question ID : **4410091633500**
Option 1 ID : **4410096452112**
Option 2 ID : **4410096452111**
Option 3 ID : **4410096452113**
Option 4 ID : **4410096452110**

Q.8 **A teacher asks students to listen to a short story and then discuss its main ideas in pairs. Which LSRW skills are mainly developed through this activity?**

Ans

✗ 1. Speaking and writing skills together

✗ 2. Reading and listening skills together

✗ 3. Listening and memorisation skills together

✓ 4. Listening and speaking skills together

Question ID : **4410091690755**
Option 1 ID : **4410096669194**
Option 2 ID : **4410096669193**
Option 3 ID : **4410096669195**
Option 4 ID : **4410096669192**

QuickSarkari.com | WhatsApp Channel | Telegram: t.me/quick_sarkari

Q.9 Which evaluation technique helps teachers check students' pronunciation in language education?

Ans
✔ 1. Recitation
✗ 2. Painting
✗ 3. Building models
✗ 4. Calculating sums

Question ID : **4410091639053**
Option 1 ID : **4410096473785**
Option 2 ID : **4410096473786**
Option 3 ID : **4410096473788**
Option 4 ID : **4410096473787**

Q.10 Which of the following best illustrates the use of three-dimensional visual aids in teaching?

Ans
✗ 1. Slide
✔ 2. Model
✗ 3. Magazine
✗ 4. Radio broadcast

Question ID : **4410091691249**
Option 1 ID : **4410096671197**
Option 2 ID : **4410096671194**
Option 3 ID : **4410096671196**
Option 4 ID : **4410096671195**

Q.11 What role do social interactions play in constructivist mathematics learning?

Ans
✗ 1. They force students to memorize more facts
✗ 2. They are not considered important in mathematics learning
✔ 3. They help shape individual interpretations of observations
✗ 4. They limit students' understanding of concepts

Question ID : **4410091633957**
Option 1 ID : **4410096453921**
Option 2 ID : **4410096453919**
Option 3 ID : **4410096453918**
Option 4 ID : **4410096453920**

Q.12 What educational interventions are suggested to address the effects of dyslexia?

Ans
✔ 1. Information technology and individual counselling
✗ 2. Physical coordination exercises
✗ 3. Group learning and memorization techniques
✗ 4. Conventional classroom teaching methods

Question ID : **4410091639908**
Option 1 ID : **4410096476839**
Option 2 ID : **4410096476841**
Option 3 ID : **4410096476838**
Option 4 ID : **4410096476840**

QuickSarkari.com | WhatsApp Channel | Telegram: t.me/quick_sarkari

Q.13 **Which of the following is a common activity organized by a science club in schools?**

Ans
✗ 1. Preparing ecological displays
✗ 2. Arranging expert lectures
✗ 3. Organizing quiz competitions
✓ 4. Conducting science experiments

Question ID : **4410091687988**
Option 1 ID : **4410096658740**
Option 2 ID : **4410096658741**
Option 3 ID : **4410096658739**
Option 4 ID : **4410096658738**

Q.14 **Which classroom activity promotes diversity and equality?**

Ans
✗ 1. Giving key leadership responsibilities only to socially privileged learners
✗ 2. Promoting classroom communication using just one dominant language
✓ 3. Celebrating diverse cultural events and inviting active student participation
✗ 4. Using learning materials that highlight only a single gender or community

Question ID : **4410091555779**
Option 1 ID : **4410096145670**
Option 2 ID : **4410096145671**
Option 3 ID : **4410096145669**
Option 4 ID : **4410096145672**

Q.15 **A mathematics teacher encourages students to discuss their strategies for solving a contextual problem in small groups and reflect on different approaches. This teaching method best supports which constructivist principle?**

Ans
✗ 1. Immediate grading of answers
✗ 2. Individual rote practice
✗ 3. Teacher explanation only
✓ 4. Peer dialogue and reflection

Question ID : **4410091619085**
Option 1 ID : **4410096395215**
Option 2 ID : **4410096395214**
Option 3 ID : **4410096395212**
Option 4 ID : **4410096395213**

QuickSarkari.com | WhatsApp Channel | Telegram: t.me/quick_sarkari

Q.16 **A school provides subsidized transport, private sanitation, and free remedial classes to improve girl attendance and retention. This primarily addresses which type of need?**

Ans
✗ 1. Strategic gender needs
✓ 2. Practical gender needs
✗ 3. Relational gender needs
✗ 4. Institutional gender needs

Question ID : **4410091560379**
Option 1 ID : **4410096163643**
Option 2 ID : **4410096163645**
Option 3 ID : **4410096163642**
Option 4 ID : **4410096163644**

Q.17 **Which approach best enables Indian classrooms to address both gender and socioeconomic inequality while promoting inclusivity?**

Ans
✗ 1. Emphasizing competitive academic rankings
✗ 2. Enforcing uniform language policies strictly
✗ 3. Limiting parental involvement in planning
✓ 4. Implementing differentiated instruction strategies

Question ID : **4410091663071**
Option 1 ID : **4410096565579**
Option 2 ID : **4410096565578**
Option 3 ID : **4410096565580**
Option 4 ID : **4410096565577**

Q.18 **A language teacher is designing a lesson plan that equally integrates listening, speaking, reading, and writing activities for a group of students learning a new language. Which instructional sequence best exemplifies an effective approach to incorporating all four LSRW skills in a communicative classroom environment?**

Ans
✗ 1. Students read aloud, write sentences, listen to instructions, and draw a picture
✗ 2. Students write a dialogue, speak lines, listen to corrections, and answer grammar questions
✗ 3. Students read silently, listen to news, answer questions orally, and draw scenes
✓ 4. Students listen to a short story, discuss its content, read a related article, and compose a summary

Question ID : **4410091615294**
Option 1 ID : **4410096380042**
Option 2 ID : **4410096380043**
Option 3 ID : **4410096380044**
Option 4 ID : **4410096380041**

QuickSarkari.com | WhatsApp Channel | Telegram: t.me/quick_sarkari

Q.19 **Which aspect of curriculum design can unintentionally reinforce gender stereotypes among students?**

Ans
✗ 1. Giving equal opportunities for boys and girls to participate in sports

✗ 2. Highlighting achievements of women from diverse backgrounds

✓ 3. Including stories in textbooks that depict only boys as leaders

✗ 4. Balancing examples of male and female scientists in science lessons

Question ID : **4410091624292**
Option 1 ID : **4410096415700**
Option 2 ID : **4410096415701**
Option 3 ID : **4410096415699**
Option 4 ID : **4410096415702**

Q.20 **Which of the following disorders is characterized by difficulty in muscle control, which causes problems with movement and coordination, language and speech, and can affect learning?**

Ans
✗ 1. Dyslexia

✗ 2. Dyscalculia

✓ 3. Dyspraxia

✗ 4. Dysgraphia

Question ID : **4410091548355**
Option 1 ID : **4410096116130**
Option 2 ID : **4410096116131**
Option 3 ID : **4410096116129**
Option 4 ID : **4410096116132**

"

QuickSarkari.com | WhatsApp Channel | Telegram: t.me/quick_sarkari

Quick Sarkari

Thank you for studying with QuickSarkari!

Get the latest Sarkari Naukri notifications, admit cards, results, answer keys and free previous-year papers first - follow us on WhatsApp and Telegram.

Visit www.quicksarkari.com

Join our WhatsApp Channel

https://whatsapp.com/channel/0029VaxxbrREquiPoXTWM229

Join our Telegram Channel

https://t.me/quick_sarkari

Share this PDF with your friends preparing for DSSSB exams.