Quick Sarkari

DSSSB PREVIOUS YEAR PAPER WITH ANSWER KEY

DSSSB Bailiff

21 February 2026 · Shift 3

डीएसएसएसबी बेलिफ़ – 21 फरवरी 2026, शिफ्ट 3 का प्रश्न पत्र, उत्तर कुंजी सहित

200	120 min	1 / −0.25	EN + HI
Questions / प्रश्न	Duration / समय	Marks per Q / अंक	Language / भाषा

Sections: General intelligence and Reasoning Ability, General Awareness, Arithmetical and Numerical Ability, English Language and Comprehension, Hindi Language and Comprehension

INSIDE THIS PDF / इस PDF में

Question Paper in English + Hindi with Answer Key (correct option marked in green) + answer table Page 2–48
प्रश्न पत्र अंग्रेज़ी + हिंदी में, उत्तर कुंजी सहित (सही विकल्प हरे रंग में) + उत्तर तालिका

Official DSSSB Response Sheet with Answer Key (correct option ticked in green) Page 49–117
आधिकारिक DSSSB रिस्पॉन्स शीट, उत्तर कुंजी सहित (सही विकल्प हरे टिक से)

HOW TO USE THIS PAPER / इस पेपर का उपयोग कैसे करें

1. Attempt the paper first as a timed online mock test (link below).
   पहले नीचे दिए लिंक से इसे टाइमर के साथ ऑनलाइन मॉक टेस्ट के रूप में हल करें।
2. Check your score, section-wise analysis and solutions online.
   ऑनलाइन अपना स्कोर, खंड-वार विश्लेषण और हल देखें।
3. Use this PDF for revision. Correct answers are shown in green.
   दोहराने के लिए इस PDF का उपयोग करें। सही उत्तर हरे रंग में दिए गए हैं।

Attempt this paper as a FREE online mock test
इस पेपर को फ्री ऑनलाइन मॉक टेस्ट के रूप में हल करें – टाइमर, स्कोर और हल के साथ
https://quicksarkari.com/dsssb-bailiff-21-february-2026-shift-3-mock-test/

All DSSSB Bailiff papers and mock tests: **quicksarkari.com/dsssb-mock-test/#bailiff**

Join WhatsApp Channel | Join Telegram Channel

DSSSB Bailiff – Question Paper (English + Hindi)

DSSSB बेलिफ़ – प्रश्न पत्र (अंग्रेज़ी + हिंदी)

Exam held on 21 February 2026, Shift 3 · 200 questions · correct answers marked ✔ in green
परीक्षा तिथि 21 फरवरी 2026, शिफ्ट 3 · 200 प्रश्न · सही उत्तर हरे रंग में ✔ से चिह्नित

> The official paper for this shift was in English. The Hindi version of each question is a translation prepared by QuickSarkari; the language-section questions are shown as asked.
> इस शिफ्ट का आधिकारिक प्रश्न पत्र अंग्रेज़ी में था। प्रत्येक प्रश्न का हिंदी संस्करण QuickSarkari द्वारा तैयार किया गया अनुवाद है; भाषा खंड के प्रश्न मूल रूप में दिए गए हैं।

General intelligence and Reasoning Ability

Q.1 In a certain code language, 'JUTE' is coded as '1634' and 'CUTE' is coded as '6412'. What is the code for 'C' in the given code language?
एक निश्चित कूट भाषा में, 'JUTE' को '1634' के रूप में कूटबद्ध किया जाता है और 'CUTE' को '6412' के रूप में कूटबद्ध किया जाता है। दी गई कूट भाषा में 'C' के लिए कूट क्या है?

(1) 6
(2) 1
(3) 4
(4) 2 ✔

Q.2 Refer to the following letter series and answer the question.
(Left) U H A X K J M I S L X O N W A E O E K U Z G (Right)
How many such consonants are there, each of which is immediately preceded by a consonant and also immediately followed by a consonant?
निम्नलिखित अक्षर श्रृंखला का संदर्भ लें और प्रश्न का उत्तर दें।
(बाएँ) U H A X K J M I S L X O N W A E O E K U Z G (दाएँ)
ऐसे कितने व्यंजन हैं, जिनमें से प्रत्येक के ठीक पहले एक व्यंजन है और ठीक बाद में भी एक व्यंजन है?

(1) 4
(2) 2
(3) 3 ✔
(4) 5

Q.3 Refer to the following letter and symbol series and answer the question that follows. Counting to be done from left to right only.
(Left) Z Q @ $ $ € R @ C € M @ T Q @ L $ E € £ N F (Right)
How many such symbols are there each of which is immediately preceded by a letter and also immediately followed by a letter?
निम्नलिखित अक्षर और प्रतीक श्रृंखला का संदर्भ लें और आगे दिए गए प्रश्न का उत्तर दें। गिनती केवल बाएँ से दाएँ की जानी है।
(बाएँ) Z Q @ $ $ € R @ C € M @ T Q @ L $ E € £ N F (दाएँ)
ऐसे कितने प्रतीक हैं जिनमें से प्रत्येक के ठीक पहले एक अक्षर है और ठीक बाद में भी एक अक्षर है?

(1) 7
(2) 6
(3) 5 ✔
(4) 4

Q.4 Refer to the following series and answer the question.
(Left) A E I O U M N H G B V G O I A E U J H G A W E I O U H G F D (Right)
If all the vowels are dropped from the series, which letter will be third from the left?

निम्नलिखित श्रृंखला का संदर्भ लें और प्रश्न का उत्तर दें।
(बाएँ) A E I O U M N H G B V G O I A E U J H G A W E I O U H G F D (दाएँ)
यदि श्रृंखला से सभी स्वरों को हटा दिया जाए, तो बाएँ से तीसरा अक्षर कौन-सा होगा?

(1) H ✔
(2) M
(3) N
(4) G

Q.5 Each letter in the word VARLETS is changed to the letter immediately following it in the English alphabetical order and then all the letters thus formed are arranged in alphabetical order. Which of the following letters will be fourth from the right in the new group of letters thus formed?

शब्द VARLETS के प्रत्येक अक्षर को अंग्रेजी वर्णमाला क्रम में उसके ठीक बाद वाले अक्षर से बदल दिया जाता है और फिर इस प्रकार बने सभी अक्षरों को वर्णमाला क्रम में व्यवस्थित किया जाता है। इस प्रकार बने अक्षरों के नए समूह में निम्नलिखित में से कौन-सा अक्षर दाएँ से चौथा होगा?

(1) T
(2) M
(3) U
(4) S ✔

Q.6 V, W, X, Y, Z are sitting around a circular table, facing the center. V sits to the immediate left of Y. Z sits second to the right of X. Who is sitting second to the left of V?

V, W, X, Y, Z एक वृत्ताकार मेज के चारों ओर केंद्र की ओर मुख करके बैठे हैं। V, Y के ठीक बाईं ओर बैठा है। Z, X के दाईं ओर दूसरे स्थान पर बैठा है। V के बाईं ओर दूसरे स्थान पर कौन बैठा है?

(1) W ✔
(2) Y
(3) Z
(4) X

Q.7 Six boxes S, T, U, V, W, and X are kept one over the other but not necessarily in the same order. U is kept third from the bottom. Only two boxes are kept between U and V. Only one box is kept between V and S. W is kept immediately above X. How many boxes are kept exactly between X and S?

छह बक्से S, T, U, V, W और X एक के ऊपर एक रखे गए हैं, लेकिन जरूरी नहीं कि इसी क्रम में हों। U को नीचे से तीसरे स्थान पर रखा गया है। U और V के बीच केवल दो बक्से रखे गए हैं। V और S के बीच केवल एक बक्सा रखा गया है। W को X के ठीक ऊपर रखा गया है। X और S के ठीक बीच में कितने बक्से रखे गए हैं?

(1) One / एक
(2) None / कोई नहीं
(3) Three / तीन
(4) Two / दो ✔

Q.8 Eight people Abhishek, Bina, Charvi, Devansh, Ekta, Firoj, Gita and Harsh are sitting in a row, facing north. Only two people sit to the right of Ekta. Only two people sit to the left of Bina. Abhishek sits immediate right of Devansh and Devansh is an immediate neighbour of Bina. Harsh sits immediate left of Gita and Gita sits at any extreme ends. Charvi does not sit at any extreme ends. Who sits at the extreme left end of the line?

आठ व्यक्ति अभिषेक, बीना, चार्वी, देवांश, एकता, फिरोज, गीता और हर्ष एक पंक्ति में उत्तर की ओर मुख करके बैठे हैं। एकता के दाईं ओर केवल दो व्यक्ति बैठे हैं। बीना के बाईं ओर केवल दो व्यक्ति बैठे हैं। अभिषेक, देवांश के ठीक दाईं ओर बैठा है और देवांश, बीना का निकटतम पड़ोसी है। हर्ष, गीता के ठीक बाईं ओर बैठा है और गीता किसी एक अंतिम छोर पर बैठी है। चार्वी किसी भी अंतिम छोर पर नहीं बैठी है। पंक्ति के बाएँ अंतिम छोर पर कौन बैठा है?

(1) Charvi / चार्वी

(2) **Firoj / फिरोज** ✔

(3) Abhishek / अभिषेक

(4) Harsh / हर्ष

Q.9 In a certain code language, 'he is good boy' is coded as 'ab yz mn bc' and 'good to see you' is coded as 'tg qr cd mn'. How is 'good' coded in the given language?
(All codes are two-letter codes only.)

एक निश्चित कूट भाषा में, 'he is good boy' को 'ab yz mn bc' के रूप में कूटबद्ध किया जाता है और 'good to see you' को 'tg qr cd mn' के रूप में कूटबद्ध किया जाता है। दी गई भाषा में 'good' को किस प्रकार कूटबद्ध किया जाता है?
(सभी कूट केवल दो-अक्षर वाले कूट हैं।)

(1) qr

(2) **mn** ✔

(3) tg

(4) ab

Q.10 Six boxes M, N, O, S, T and U are kept one over the other but not necessarily in the same order. Only U is kept between O and M. M is kept immediately above T. S is kept immediately below N and N is kept on the top. Which box is third from the top?

छह बक्से M, N, O, S, T और U एक के ऊपर एक रखे गए हैं, लेकिन जरूरी नहीं कि इसी क्रम में हों। O और M के बीच केवल U रखा गया है। M को T के ठीक ऊपर रखा गया है। S को N के ठीक नीचे रखा गया है और N को सबसे ऊपर रखा गया है। ऊपर से तीसरा बक्सा कौन-सा है?

(1) U

(2) S

(3) **O** ✔

(4) M

Q.11 Refer to the following number series and answer the question that follows. (All numbers are single-digit numbers only.) (Counting to be done from left to right only.)
(Left) 7 5 9 3 1 9 4 2 7 6 3 9 1 8 5 2 4 7 3 9 7 1 4 5 4 2 7 (Right)
How many such even digits are there each of which is immediately preceded by an odd digit and also immediately followed by another odd digit?

निम्नलिखित संख्या श्रृंखला का संदर्भ लें और आगे दिए गए प्रश्न का उत्तर दें। (सभी संख्याएँ केवल एक-अंकीय संख्याएँ हैं।) (गिनती केवल बाएँ से दाएँ की जानी है।)
(बाएँ) 7 5 9 3 1 9 4 2 7 6 3 9 1 8 5 2 4 7 3 9 7 1 4 5 4 2 7 (दाएँ)
ऐसे कितने सम अंक हैं जिनमें से प्रत्येक के ठीक पहले एक विषम अंक है और ठीक बाद में भी एक अन्य विषम अंक है?

(1) Three / तीन ✔
(2) Two / दो
(3) Four / चार
(4) One / एक

Q.12 P is the daughter of Q. Q is married to R. R is the brother of S. S is the parent of T.
How is Q related to T?

P, Q की पुत्री है। Q का विवाह R से हुआ है। R, S का भाई है। S, T का माता/पिता है।
Q का T से क्या संबंध है?

(1) Grandparent / दादा/दादी
(2) Sibling / भाई/बहन
(3) Aunt / चाची/मामी ✔
(4) Child / संतान

Q.13 Refer to the following letter series and answer the question.
(Left) A G O G J H L U D V X E G F U P O W B O O Y (Right)
How many such consonants are there, each of which is immediately preceded by a vowel and also immediately followed by a vowel?

निम्नलिखित अक्षर श्रृंखला का संदर्भ लें और प्रश्न का उत्तर दें।
(बाएँ) A G O G J H L U D V X E G F U P O W B O O Y (दाएँ)
ऐसे कितने व्यंजन हैं, जिनमें से प्रत्येक के ठीक पहले एक स्वर है और ठीक बाद में भी एक स्वर है?

(1) 3
(2) 4
(3) 2 ✔
(4) 1

Q.14 D is married to E. F is the son of D. G is the daughter of E. H is the sister of F. How is H related to D?

D का विवाह E से हुआ है। F, D का पुत्र है। G, E की पुत्री है। H, F की बहन है। H का D से क्या संबंध है?

(1) Daughter / पुत्री ✔
(2) Spouse / पति/पत्नी
(3) Son / पुत्र
(4) Sibling / भाई/बहन

QuickSarkari.com | WhatsApp Channel | Telegram: t.me/quick_sarkari

Q.15 M, N, O, P, Q, and R live on six different floors of the same building. The lowermost floor in the building is numbered 1, the floor above it, number 2 and so on till the topmost floor is numbered 6. Only two people live between N and R. Q lives immediately below M. O lives on the topmost floor. Only one person lives between O and N. On which floor does Q live?

M, N, O, P, Q और R एक ही इमारत की छह अलग-अलग मंजिलों पर रहते हैं। इमारत की सबसे निचली मंजिल की संख्या 1 है, उसके ऊपर वाली मंजिल की संख्या 2 है और इसी प्रकार सबसे ऊपरी मंजिल की संख्या 6 है। N और R के बीच केवल दो व्यक्ति रहते हैं। Q, M के ठीक नीचे रहता है। O सबसे ऊपरी मंजिल पर रहता है। O और N के बीच केवल एक व्यक्ति रहता है। Q किस मंजिल पर रहता है?

(1) Floor number 3 / मंजिल संख्या 3

(2) Floor number 5 / मंजिल संख्या 5

(3) Floor number 2 / मंजिल संख्या 2 ✔

(4) Floor number 4 / मंजिल संख्या 4

Q.16 Refer to the following number series and answer the question that follows. All numbers are single-digit numbers only. Counting to be done from left to right only. (Left) 9 4 1 3 7 8 2 5 6 9 4 1 3 8 7 2 5 9 6 4 3 1 8 7 5 2 6 (Right)

How many such odd digits are there, each of which is immediately followed by an even digit and also immediately preceded by an odd digit?

निम्नलिखित संख्या श्रृंखला का संदर्भ लें और आगे दिए गए प्रश्न का उत्तर दें। सभी संख्याएँ केवल एक-अंकीय संख्याएँ हैं। गिनती केवल बाएँ से दाएँ की जानी है।

(बाएँ) 9 4 1 3 7 8 2 5 6 9 4 1 3 8 7 2 5 9 6 4 3 1 8 7 5 2 6 (दाएँ)

ऐसे कितने विषम अंक हैं, जिनमें से प्रत्येक के ठीक बाद एक सम अंक है और ठीक पहले एक विषम अंक है?

(1) More than three / तीन से अधिक ✔

(2) Three / तीन

(3) Two / दो

(4) One / एक

Q.17 Seven boxes X, Y, Z, A, B, C, and D are kept one over the other but not necessarily in the same order. B is kept second from the bottom. D is not an immediate neighbor of B. Only two boxes are kept between B and X. Y is kept immediately below X. Only three boxes are kept between D and C. Z is kept on one of the positions above A. Which box is kept fourth from the top?

सात बक्से X, Y, Z, A, B, C और D एक के ऊपर एक रखे गए हैं, लेकिन जरूरी नहीं कि इसी क्रम में हों। B को नीचे से दूसरे स्थान पर रखा गया है। D, B का निकटतम पड़ोसी नहीं है। B और X के बीच केवल दो बक्से रखे गए हैं। Y को X के ठीक नीचे रखा गया है। D और C के बीच केवल तीन बक्से रखे गए हैं। Z को A से ऊपर के किसी एक स्थान पर रखा गया है। ऊपर से चौथे स्थान पर कौन-सा बक्सा रखा गया है?

(1) Y ✔

(2) D

(3) C

(4) X

Q.18 Refer to the following letter series and answer the question that follows. Counting to be done from left to right only.
(Left) N M C L Y K O F W Q J A T P S G K S K D (Right)
How many consonants are there in the series, each of which is immediately preceded by a vowel, and immediately followed by a consonant?
निम्नलिखित अक्षर श्रृंखला का संदर्भ लें और आगे दिए गए प्रश्न का उत्तर दें। गिनती केवल बाएँ से दाएँ की जानी है।
(बाएँ) N M C L Y K O F W Q J A T P S G K S K D (दाएँ)
श्रृंखला में ऐसे कितने व्यंजन हैं, जिनमें से प्रत्येक के ठीक पहले एक स्वर है और ठीक बाद में एक व्यंजन है?

(1) Two / दो ✔
(2) One / एक
(3) Four / चार
(4) Three / तीन

Q.19 Five people, L, M, N, O, and P are sitting in a row facing north. Only O sits to the immediate right of N. M is sitting at the extreme left end. Only two people sit between L and O. Who sits third from the left end?
पाँच व्यक्ति L, M, N, O और P एक पंक्ति में उत्तर की ओर मुख करके बैठे हैं। N के ठीक दाईं ओर केवल O बैठा है। M बाएँ अंतिम छोर पर बैठा है। L और O के बीच केवल दो व्यक्ति बैठे हैं। बाएँ छोर से तीसरे स्थान पर कौन बैठा है?

(1) L
(2) O
(3) P ✔
(4) N

Q.20 Seven people F, G, H, Q, R, S and T are sitting in a straight line facing north. Only three people sit between F and H. Only three people sit to the left of T. Only Q sits to the right of F. R sits at some place to the left of S but at some place to the right of G. How many people sit between G and S?
सात व्यक्ति F, G, H, Q, R, S और T एक सीधी पंक्ति में उत्तर की ओर मुख करके बैठे हैं। F और H के बीच केवल तीन व्यक्ति बैठे हैं। T के बाईं ओर केवल तीन व्यक्ति बैठे हैं। F के दाईं ओर केवल Q बैठा है। R, S के बाईं ओर किसी स्थान पर, लेकिन G के दाईं ओर किसी स्थान पर बैठा है। G और S के बीच कितने व्यक्ति बैठे हैं?

(1) One / एक
(2) Two / दो
(3) Three / तीन ✔
(4) Four / चार

Q.21 Based on the English alphabetical order, three of the following four letter cluster pairs are alike in a certain way and thus form a group. Which is the one that does not belong to that group?
(Note: The odd man out is not based on the number of consonants/vowels or their position in the letter cluster.)
अंग्रेजी वर्णमाला क्रम के आधार पर, निम्नलिखित चार अक्षर-समूह युग्मों में से तीन किसी निश्चित प्रकार से एक समान हैं और इस प्रकार एक समूह बनाते हैं। वह कौन-सा युग्म है जो उस समूह से संबंधित नहीं है?
(नोट: असंगत युग्म, अक्षर-समूह में व्यंजनों/स्वरों की संख्या या उनके स्थान पर आधारित नहीं है।)

(1) TQ–PM
(2) RO–NK
(3) NK–JG
(4) UR–PP ✔

Q.22 If the water source is placed along X-Y, as shown in the figure, which of the following options will be the water reflection of the given figure?

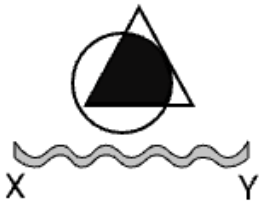

यदि जल स्रोत को आकृति में दर्शाए अनुसार X-Y के अनुदिश रखा जाए, तो निम्नलिखित में से कौन-सा विकल्प दी गई आकृति का जल प्रतिबिंब होगा?

(1) 

(2) 

(3)  ✔

(4) 

Q.23 What should come in place of the question mark (?) in the given series based on the English alphabetical order?
JVD KVE LVF MVG ?

अंग्रेजी वर्णमाला क्रम के आधार पर दी गई श्रृंखला में प्रश्नवाचक चिह्न (?) के स्थान पर क्या आना चाहिए?
JVD KVE LVF MVG ?

(1) NVI
(2) OVI
(3) **NVH** ✔
(4) OVH

Q.24 What should come in place of ? in the given series based on the English alphabetical order?
CMR FPU ISX LVA ?

अंग्रेजी वर्णमाला क्रम के आधार पर दी गई श्रृंखला में ? के स्थान पर क्या आना चाहिए?
CMR FPU ISX LVA ?

(1) NYD
(2) OYE
(3) NYE
(4) **OYD** ✔

QuickSarkari.com | WhatsApp Channel | Telegram: t.me/quick_sarkari

Q.25 What will come in the place of the question mark (?) in the following equation, if '+' and '–' are interchanged and '×' and '÷' are interchanged?
19 ÷ 56 × 14 + 36 – 14 = ?

यदि '+' और '–' को आपस में बदल दिया जाए तथा '×' और '÷' को आपस में बदल दिया जाए, तो निम्नलिखित समीकरण में प्रश्नवाचक चिह्न (?) के स्थान पर क्या आएगा?
19 ÷ 56 × 14 + 36 – 14 = ?

(1) 53
(2) 50
(3) 54 ✔
(4) 51

Q.26 3 is related to 45 following a certain logic. Following the same logic, 22 is related to 330. To which of the following is 39 related, following the same logic?
(NOTE: Operations should be performed on the whole numbers, without breaking down the numbers into their constituent digits. E.g. 13 – Operations on 13 such as adding/subtracting/multiplying to 13 can be performed. Breaking down 13 into 1 and 3 and then performing mathematical operations on 1 and 3 is not allowed.)

एक निश्चित तर्क का अनुसरण करते हुए 3 का संबंध 45 से है। उसी तर्क का अनुसरण करते हुए 22 का संबंध 330 से है। उसी तर्क का अनुसरण करते हुए 39 का संबंध निम्नलिखित में से किससे है?
(नोट: संख्याओं को उनके घटक अंकों में विभाजित किए बिना, पूर्ण संख्याओं पर संक्रियाएँ की जानी चाहिए। उदाहरण के लिए 13 – 13 पर संक्रियाएँ जैसे 13 में जोड़ना/घटाना/गुणा करना आदि की जा सकती हैं। 13 को 1 और 3 में विभाजित करना और फिर 1 और 3 पर गणितीय संक्रियाएँ करना वर्जित है।)

(1) 855
(2) 555
(3) 585 ✔
(4) 565

Q.27 UKNE is related to RHKB in a certain way based on the English alphabetical order.
In the same way, OSIX is related to LPFU. To which of the following is LWAP related, following the same logic?

अंग्रेजी वर्णमाला क्रम के आधार पर UKNE एक निश्चित प्रकार से RHKB से संबंधित है।
उसी प्रकार, OSIX, LPFU से संबंधित है। उसी तर्क का अनुसरण करते हुए LWAP निम्नलिखित में से किससे संबंधित है?

(1) HUYL
(2) JWZN
(3) ITXM ✔
(4) HVYL

Q.28 Below are given two sets of numbers. In each set of numbers, a certain mathematical operation on the first number results in the second number.
Similarly, certain mathematical operation on the second number results in the third number and so on.
Which of the given options follows the same set of operations as in the question?
(NOTE – A two/three-digit number cannot be broken into individual digits for operations e.g. if 37 is followed by 10, the operation cannot be 3+7 as a two-digit number cannot be broken into individual digits)
5 - 7 - 49 - 50 ; 1 - 3 - 9 - 10

नीचे संख्याओं के दो समुच्चय दिए गए हैं। संख्याओं के प्रत्येक समुच्चय में, पहली संख्या पर एक निश्चित गणितीय संक्रिया करने से दूसरी संख्या प्राप्त होती है।
इसी प्रकार, दूसरी संख्या पर एक निश्चित गणितीय संक्रिया करने से तीसरी संख्या प्राप्त होती है और इसी प्रकार आगे भी। दिए गए विकल्पों में से कौन-सा विकल्प प्रश्न में दी गई संक्रियाओं के समान समुच्चय का अनुसरण करता है?
(नोट – संक्रियाएँ करने के लिए दो/तीन अंकों की संख्या को अलग-अलग अंकों में विभाजित नहीं किया जा सकता है, उदाहरण के लिए यदि 37 के बाद 10 आता है, तो संक्रिया 3+7 नहीं हो सकती, क्योंकि दो अंकों की संख्या को अलग-अलग अंकों में विभाजित नहीं किया जा सकता है)
5 - 7 - 49 - 50 ; 1 - 3 - 9 - 10

(1) 3 - 5 - 25 - 30
(2) 13 - 14 - 196 - 198
(3) **8 - 10 - 100 - 101** ✔
(4) 7 - 9 - 81 - 91

Q.29 Based on the English alphabetical order, three of the following four are alike in a certain way and thus form a group. Which is the one that DOES NOT belong to that group?
(Note: The odd man out is not based on the number of consonants/vowels or their position in the letter-cluster.)

अंग्रेजी वर्णमाला क्रम के आधार पर, निम्नलिखित चार में से तीन किसी निश्चित प्रकार से एक समान हैं और इस प्रकार एक समूह बनाते हैं। वह कौन-सा है जो उस समूह से संबंधित नहीं है?
(नोट: असंगत, अक्षर-समूह में व्यंजनों/स्वरों की संख्या या उनके स्थान पर आधारित नहीं है।)

(1) MNQ
(2) **PSR** ✔
(3) VWZ
(4) TUX

Q.30 25 is related to 150 following a certain logic. Following the same logic, 32 is related to 192. To which of the following is 14 related, following the same logic?
(NOTE: Operations should be performed on the whole numbers, without breaking down the numbers into their constituent digits. E.g. 13 – Operations on 13 such as adding/subtracting/multiplying etc. to 13, can be performed. Breaking down 13 into 1 and 3 and then performing mathematical operations on 1 and 3 is not allowed.)

एक निश्चित तर्क का अनुसरण करते हुए 25 का संबंध 150 से है। उसी तर्क का अनुसरण करते हुए 32 का संबंध 192 से है। उसी तर्क का अनुसरण करते हुए 14 का संबंध निम्नलिखित में से किससे है?
(नोट: संख्याओं को उनके घटक अंकों में विभाजित किए बिना, पूर्ण संख्याओं पर संक्रियाएँ की जानी चाहिए। उदाहरण के लिए 13 – 13 पर संक्रियाएँ जैसे 13 में जोड़ना/घटाना/गुणा करना आदि की जा सकती हैं। 13 को 1 और 3 में विभाजित करना और फिर 1 और 3 पर गणितीय संक्रियाएँ करना वर्जित है।)

(1) **84** ✔
(2) 103
(3) 110
(4) 95

Q.31 Select the correct mirror image of the given figure when the mirror is placed at PQ as shown below.

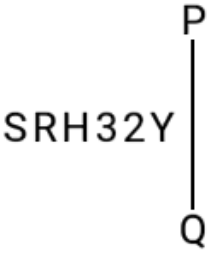

जब दर्पण को नीचे दर्शाए अनुसार PQ पर रखा जाए, तो दी गई आकृति के सही दर्पण प्रतिबिंब का चयन करें।

(1) YƧ3HRƧ
(2) YƧƐHЯS
(3) Y2ƐHЯƧ
(4) YƧƐHЯƧ ✔

Q.32 Based on the English alphabetical order, three of the following four letter-clusters are alike in a certain way and thus form a group. Which letter-cluster DOES NOT belong to that group?
(Note: The odd one out is not based on the number of consonants/vowels or their position in the letter-cluster.)

अंग्रेजी वर्णमाला क्रम के आधार पर, निम्नलिखित चार अक्षर-समूहों में से तीन किसी निश्चित प्रकार से एक समान हैं और इस प्रकार एक समूह बनाते हैं। कौन-सा अक्षर-समूह उस समूह से संबंधित नहीं है?
(नोट: असंगत अक्षर-समूह, अक्षर-समूह में व्यंजनों/स्वरों की संख्या या उनके स्थान पर आधारित नहीं है।)

(1) NOK
(2) MNJ
(3) JKG
(4) **PLC** ✔

Q.33 5 is related to 31 following a certain logic. Following the same logic, 8 is related to 70. To which of the following is 12 related, following the same logic?
(NOTE: Operations should be performed on the whole numbers, without breaking down the numbers into their constituent digits. E.g. 13 – Operations on 13 such as adding/subtracting/multiplying to 13 can be performed. Breaking down 13 into 1 and 3 and then performing mathematical operations on 1 and 3 is not allowed.)

एक निश्चित तर्क का अनुसरण करते हुए 5 का संबंध 31 से है। उसी तर्क का अनुसरण करते हुए 8 का संबंध 70 से है। उसी तर्क का अनुसरण करते हुए 12 का संबंध निम्नलिखित में से किससे है?
(नोट: संख्याओं को उनके घटक अंकों में विभाजित किए बिना, पूर्ण संख्याओं पर संक्रियाएँ की जानी चाहिए। उदाहरण के लिए 13 – 13 पर संक्रियाएँ जैसे 13 में जोड़ना/घटाना/गुणा करना आदि की जा सकती हैं। 13 को 1 और 3 में विभाजित करना और फिर 1 और 3 पर गणितीय संक्रियाएँ करना वर्जित है।)

(1) 64
(2) **150** ✔
(3) 78
(4) 106

QuickSarkari.com | WhatsApp Channel | Telegram: t.me/quick_sarkari

Q.34 If 2 is added to each even digit and 1 is subtracted from each odd digit in the number 714235, how many digits will appear more than once in the new number thus formed?

यदि संख्या 714235 में प्रत्येक सम अंक में 2 जोड़ दिया जाए और प्रत्येक विषम अंक में से 1 घटा दिया जाए, तो इस प्रकार बनी नई संख्या में कितने अंक एक से अधिक बार आएँगे?

(1) 2 ✔

(2) 1

(3) 4

(4) 3

Q.35 OF 10 is related to QC -1 in a certain way. In the same way, JL 17 is related to LI 6.
To which of the given options is KM 5 related, following the same logic?

OF 10 एक निश्चित प्रकार से QC -1 से संबंधित है। उसी प्रकार, JL 17, LI 6 से संबंधित है।
उसी तर्क का अनुसरण करते हुए KM 5 दिए गए विकल्पों में से किससे संबंधित है?

(1) HY -7

(2) VJ -5

(3) MJ -6 ✔

(4) CF -4

Q.36 Select the pair which follows the same pattern as that followed by the two pairs given below. Both pairs follow the same pattern.
JRW : HPU KBM : IZK

उस युग्म का चयन करें जो उसी पैटर्न का अनुसरण करता है जिसका अनुसरण नीचे दिए गए दो युग्म करते हैं। दोनों युग्म एक ही पैटर्न का अनुसरण करते हैं।
JRW : HPU KBM : IZK

(1) DNS : BLQ ✔

(2) DNS : FPV

(3) HRW : EOT

(4) DNS : CMR

Q.37 84 is related to 24 following a certain logic. Following the same logic, 96 is related to 28. To which of the following is 105 related, following the same logic?
(NOTE: Operations should be performed on the whole numbers, without breaking down the numbers into its constituent digits. E.g. 13 - Operations on 13 such as adding / subtracting / multiplying etc. to 13 can be performed . Breaking down 13 into 1 and 3 and then performing mathematical operations on 1 and 3 is not allowed.)

एक निश्चित तर्क का अनुसरण करते हुए 84 का संबंध 24 से है। उसी तर्क का अनुसरण करते हुए 96 का संबंध 28 से है। उसी तर्क का अनुसरण करते हुए 105 का संबंध निम्नलिखित में से किससे है?
(नोट: संख्याओं को उनके घटक अंकों में विभाजित किए बिना, पूर्ण संख्याओं पर संक्रियाएँ की जानी चाहिए। उदाहरण के लिए 13 - 13 पर संक्रियाएँ जैसे 13 में जोड़ना / घटाना / गुणा करना आदि की जा सकती हैं। 13 को 1 और 3 में विभाजित करना और फिर 1 और 3 पर गणितीय संक्रियाएँ करना वर्जित है।)

(1) 38

(2) 35

(3) 31 ✔

(4) 40

Q.38 If 'P' stands for '×' , 'Q' stands for '÷', 'R' stands for '-' and 'S' stands for '+' , what will come in place of the question mark '?' in the following equation?
(72 Q 9) P 2 S 5 P 2 R 7 = ?

यदि 'P' का अर्थ '×' है, 'Q' का अर्थ '÷' है, 'R' का अर्थ '-' है और 'S' का अर्थ '+' है, तो निम्नलिखित समीकरण में प्रश्नवाचक चिह्न '?' के स्थान पर क्या आएगा?
(72 Q 9) P 2 S 5 P 2 R 7 = ?

(1) 37
(2) 24
(3) 19 ✔
(4) 11

Q.39 What will come in the place of '?' in the following equation, if '+' and ' – ' are interchanged and '×' and '÷' are interchanged?
26 - 70 × 7 + 8 ÷ 2 = ?

यदि '+' और ' – ' को आपस में बदल दिया जाए तथा '×' और '÷' को आपस में बदल दिया जाए, तो निम्नलिखित समीकरण में '?' के स्थान पर क्या आएगा?
26 - 70 × 7 + 8 ÷ 2 = ?

(1) 20 ✔
(2) 14
(3) 32
(4) 40

Q.40 SM 17 is related to PJ 40 in a certain way. In the same way, ET 25 is related to BQ 56. To which of the following is PK 31 related to following the same logic?

SM 17 एक निश्चित प्रकार से PJ 40 से संबंधित है। उसी प्रकार, ET 25, BQ 56 से संबंधित है। उसी तर्क का अनुसरण करते हुए PK 31 निम्नलिखित में से किससे संबंधित है?

(1) NI 68
(2) MH 62
(3) NI 70
(4) MH 68 ✔

General Awareness

Q.41 The constitutional statement "The State shall not deny to any person equality before the law or the equal protection of the laws" is contained in which provision of the Constitution of India?

संवैधानिक कथन "राज्य, किसी व्यक्ति को विधि के समक्ष समता से या विधियों के समान संरक्षण से वंचित नहीं करेगा" भारत के संविधान के किस प्रावधान में निहित है?

(1) Article 12 / अनुच्छेद 12
(2) Article 14 / अनुच्छेद 14 ✔
(3) Article 13 / अनुच्छेद 13
(4) Article 15 / अनुच्छेद 15

Q.42 The "Drain of Wealth" theory, which explained the continuous transfer of India's economic surplus to Britain during colonial rule, was propounded by whom?

"धन की निकासी" (ड्रेन ऑफ वेल्थ) सिद्धांत, जिसने औपनिवेशिक शासन के दौरान भारत के आर्थिक अधिशेष के ब्रिटेन को निरंतर हस्तांतरण की व्याख्या की, किसके द्वारा प्रतिपादित किया गया था?

(1) R.C. Desai / आर.सी. देसाई

(2) V.K.R.V. Rao / वी.के.आर.वी. राव

(3) William Digby / विलियम डिग्बी

(4) **Dadabhai Naoroji / दादाभाई नौरोजी ✔**

Q.43 The World Trade Organization (WTO) was established in 1995 as the successor to which of the following organisations?

विश्व व्यापार संगठन (WTO) की स्थापना 1995 में निम्नलिखित में से किस संगठन के उत्तराधिकारी के रूप में की गई थी?

(1) International Monetary Fund / अंतर्राष्ट्रीय मुद्रा कोष

(2) **General Agreement on Tariffs and Trade / प्रशुल्क एवं व्यापार पर सामान्य समझौता ✔**

(3) World Bank Group / विश्व बैंक समूह

(4) United Nations Conference on Trade and Development / संयुक्त राष्ट्र व्यापार एवं विकास सम्मेलन

Q.44 Within India's southern physiographic divisions, which physical feature is the most dominant in the state of Kerala?

भारत के दक्षिणी भौतिक विभागों में, केरल राज्य में कौन-सी भौतिक विशेषता सबसे प्रमुख है?

(1) **Western Ghats and coastal plains / पश्चिमी घाट और तटीय मैदान ✔**

(2) Central plateau / मध्य पठार

(3) Himalayan mountains / हिमालय पर्वत

(4) Desert region / मरुस्थलीय क्षेत्र

Q.45 Which Act introduced the principle of indirect elections to the legislative councils and expanded their functions by allowing Budget discussions and questions to the Executive?

किस अधिनियम ने विधान परिषदों में अप्रत्यक्ष चुनाव के सिद्धांत को प्रस्तुत किया और बजट पर चर्चा तथा कार्यपालिका से प्रश्न पूछने की अनुमति देकर उनके कार्यों का विस्तार किया?

(1) Indian Councils Act, 1909 / भारतीय परिषद अधिनियम, 1909

(2) **Indian Councils Act, 1892 / भारतीय परिषद अधिनियम, 1892 ✔**

(3) Government of India Act, 1919 / भारत सरकार अधिनियम, 1919

(4) Government of India Act, 1858 / भारत सरकार अधिनियम, 1858

Q.46 Fundamental duties are mentioned in which Part of the Indian Constitution?

मौलिक कर्तव्यों का उल्लेख भारतीय संविधान के किस भाग में किया गया है?

(1) Part III / भाग III

(2) Part IV / भाग IV

(3) **Part IVA / भाग IVA ✔**

(4) Part IX / भाग IX

Q.47 Which Article of the Constitution of India abolishes untouchability and declares its practice in any form as an offence?

भारत के संविधान का कौन-सा अनुच्छेद अस्पृश्यता का अंत करता है और किसी भी रूप में इसके आचरण को अपराध घोषित करता है?

(1) Article 15 / अनुच्छेद 15

(2) Article 17 / अनुच्छेद 17 ✔

(3) Article 16 / अनुच्छेद 16

(4) Article 18 / अनुच्छेद 18

Q.48 Which of the following is essential to study the market equilibrium?

बाजार संतुलन का अध्ययन करने के लिए निम्नलिखित में से क्या आवश्यक है?

(1) Only firms' behaviour / केवल फर्मों का व्यवहार

(2) Both consumer and firms' behaviour / उपभोक्ता और फर्मों दोनों का व्यवहार ✔

(3) Neither consumer nor firms' behaviour / न तो उपभोक्ता का और न ही फर्मों का व्यवहार

(4) Only consumer behaviour / केवल उपभोक्ता व्यवहार

Q.49 According to the India Meteorological Department (IMD), El Niño events in the equatorial Pacific Ocean are most commonly associated with which impact on the Indian Summer Monsoon rainfall?

भारत मौसम विज्ञान विभाग (IMD) के अनुसार, विषुवतीय प्रशांत महासागर में अल नीनो की घटनाएँ भारतीय ग्रीष्मकालीन मानसून वर्षा पर सबसे अधिक किस प्रभाव से संबंधित होती हैं?

(1) Excess monsoon rainfall affecting nearly all regions of India / भारत के लगभग सभी क्षेत्रों को प्रभावित करने वाली अत्यधिक मानसून वर्षा

(2) Uniform increase in winter rainfall across most parts of India / भारत के अधिकांश भागों में शीतकालीन वर्षा में एकसमान वृद्धि

(3) Weakened monsoon conditions causing below-normal rainfall in India / कमजोर मानसूनी स्थितियाँ, जिससे भारत में सामान्य से कम वर्षा होती है ✔

(4) No measurable impact on seasonal monsoon rainfall patterns / मौसमी मानसून वर्षा के प्रतिरूप पर कोई मापने योग्य प्रभाव नहीं

Q.50 Who discovered the sea route to India by reaching Calicut in 1498?

1498 में कालीकट पहुँचकर भारत के समुद्री मार्ग की खोज किसने की थी?

(1) Alfonso de Albuquerque / अल्फांसो डी अल्बुकर्क

(2) Vasco da Gama / वास्को डी गामा ✔

(3) Roberto Clive / रॉबर्टो क्लाइव

(4) Francis Drake / फ्रांसिस ड्रेक

Q.51 The Directive Principles of State Policy (DPSPs) are contained in which range of Articles of the Constitution of India?

राज्य के नीति निदेशक तत्व (DPSPs) भारत के संविधान के अनुच्छेदों की किस श्रेणी में निहित हैं?

(1) Articles 36–51 / अनुच्छेद 36–51 ✔

(2) Articles 243–243O / अनुच्छेद 243–243O

(3) Articles 52–75 / अनुच्छेद 52–75

(4) Articles 12–35 / अनुच्छेद 12–35

Q.52 The Bhil revolts of the eighteenth and nineteenth centuries were primarily concentrated in which region of India?
अठारहवीं और उन्नीसवीं शताब्दी के भील विद्रोह मुख्य रूप से भारत के किस क्षेत्र में केंद्रित थे?

(1) The eastern hill zones of Odisha and Jharkhand / ओडिशा और झारखंड के पूर्वी पहाड़ी क्षेत्र
(2) The southern tribal belts of Karnataka and Kerala / कर्नाटक और केरल की दक्षिणी जनजातीय पट्टियाँ
(3) The north-eastern highlands of Assam and Meghalaya / असम और मेघालय के उत्तर-पूर्वी उच्चभूमि क्षेत्र
(4) **The western tribal regions of Rajasthan and adjoining areas / राजस्थान और निकटवर्ती क्षेत्रों के पश्चिमी जनजातीय क्षेत्र ✔**

Q.53 The Great Indian Plains are predominantly formed by the alluvial deposits of which river system?
विशाल भारतीय मैदान मुख्य रूप से किस नदी तंत्र के जलोढ़ निक्षेपों से बने हैं?

(1) The Mahanadi, the Subarnarekha, and the Baitarani rivers / महानदी, सुवर्णरेखा और बैतरणी नदियाँ
(2) The Narmada, the Tapti, and the Luni rivers / नर्मदा, ताप्ती और लूनी नदियाँ
(3) The Godavari, the Krishna, and the Kaveri rivers / गोदावरी, कृष्णा और कावेरी नदियाँ
(4) **The Indus, the Ganga, and the Brahmaputra rivers / सिंधु, गंगा और ब्रह्मपुत्र नदियाँ ✔**

Q.54 Which nationalist leader launched the Home Rule Movement in India jointly with Annie Besant?
किस राष्ट्रवादी नेता ने एनी बेसेंट के साथ मिलकर भारत में होम रूल आंदोलन शुरू किया था?

(1) **Bal Gangadhar Tilak / बाल गंगाधर तिलक ✔**
(2) R.C. Dutt / आर.सी. दत्त
(3) Bipin Chandra Pal / बिपिन चंद्र पाल
(4) Rabindranath Tagore / रवींद्रनाथ टैगोर

Q.55 Which of the following posts was created by the Government of India Act, 1919?
भारत सरकार अधिनियम, 1919 द्वारा निम्नलिखित में से किस पद का सृजन किया गया था?

(1) Secretary of State for India / भारत सचिव
(2) **High Commissioner for India in the United Kingdom / यूनाइटेड किंगडम में भारत के लिए उच्चायुक्त ✔**
(3) Governor-General of India / भारत का गवर्नर-जनरल
(4) Viceroy of India / भारत का वायसराय

Q.56 The Konkan Coast of India is located between which of the following regions?
भारत का कोंकण तट निम्नलिखित में से किन क्षेत्रों के बीच स्थित है?

(1) Karnataka and Kerala / कर्नाटक और केरल
(2) Gujarat and Kerala / गुजरात और केरल
(3) Goa and Karnataka / गोवा और कर्नाटक
(4) **Maharashtra and Goa / महाराष्ट्र और गोवा ✔**

Q.57 In which year was the Reserve Bank of India, the central bank of India, established?
भारत के केंद्रीय बैंक, भारतीय रिज़र्व बैंक की स्थापना किस वर्ष हुई थी?

(1) 1947
(2) 1951
(3) **1935 ✔**
(4) 1920

Q.58 Which organisation, functioning under the Ministry of Home Affairs, Government of India, is responsible for conducting the Census of India?

भारत सरकार के गृह मंत्रालय के अधीन कार्यरत कौन-सा संगठन भारत की जनगणना संचालित करने के लिए उत्तरदायी है?

(1) National Sample Survey Office of India / भारत का राष्ट्रीय प्रतिदर्श सर्वेक्षण कार्यालय

(2) Ministry of Statistics and Programme Implementation / सांख्यिकी और कार्यक्रम कार्यान्वयन मंत्रालय

(3) Office of the Registrar General and Census Commissioner / भारत के महारजिस्ट्रार और जनगणना आयुक्त का कार्यालय ✔

(4) NITI Aayog's Data and Policy Division / नीति आयोग का डेटा और नीति प्रभाग

Q.59 Which of the following Acts under British India abolished the system of provincial dyarchy and suggested the establishment of dyarchy at the centre?

ब्रिटिश भारत के अंतर्गत निम्नलिखित में से किस अधिनियम ने प्रांतीय द्वैध शासन प्रणाली को समाप्त किया और केंद्र में द्वैध शासन की स्थापना का सुझाव दिया?

(1) Government of India Act, 1919 / भारत सरकार अधिनियम, 1919

(2) Indian Councils Act, 1909 / भारतीय परिषद अधिनियम, 1909

(3) Indian Councils Act, 1892 / भारतीय परिषद अधिनियम, 1892

(4) Government of India Act, 1935 / भारत सरकार अधिनियम, 1935 ✔

Q.60 The Liquidity Adjustment Facility (LAF), introduced in April 1999 to modernise short-term liquidity management in India, was introduced by which institution?

भारत में अल्पकालिक तरलता प्रबंधन के आधुनिकीकरण के लिए अप्रैल 1999 में शुरू की गई चलनिधि समायोजन सुविधा (LAF) किस संस्था द्वारा शुरू की गई थी?

(1) National Bank for Agriculture and Rural Development / राष्ट्रीय कृषि और ग्रामीण विकास बैंक

(2) Industrial Development Bank of India / भारतीय औद्योगिक विकास बैंक

(3) Securities and Exchange Board of India / भारतीय प्रतिभूति और विनिमय बोर्ड

(4) Reserve Bank of India / भारतीय रिज़र्व बैंक ✔

Q.61 Alongside the Jammu and Kashmir Reorganisation (Amendment) Bill, 2025, which other type of Bill was introduced in the Lok Sabha on August 20, 2025?

जम्मू और कश्मीर पुनर्गठन (संशोधन) विधेयक, 2025 के साथ, 20 अगस्त, 2025 को लोकसभा में किस अन्य प्रकार का विधेयक पेश किया गया था?

(1) One Hundred and Twelfth Amendment, Bill, 2025 / एक सौ बारहवाँ संशोधन विधेयक, 2025

(2) One Hundred and Thirtieth Amendment, Bill, 2025 / एक सौ तीसवाँ संशोधन विधेयक, 2025 ✔

(3) One Hundred and Eleventh Amendment, Bill, 2025 / एक सौ ग्यारहवाँ संशोधन विधेयक, 2025

(4) One Hundred and Tenth Amendment, Bill, 2025 / एक सौ दसवाँ संशोधन विधेयक, 2025

Q.62 Gulabo Sapera, a famous Rajasthani folk dancer, was given Padam Shri in which of the following years?

प्रसिद्ध राजस्थानी लोक नृत्यांगना गुलाबो सपेरा को निम्नलिखित में से किस वर्ष पद्म श्री से सम्मानित किया गया था?

(1) 2013

(2) 2016 ✔

(3) 2015

(4) 2002

Q.63 The International Conference on Green Hydrogen (ICGH 2025) held at Bharat Mandapam, New Delhi, was organized by which ministry?

भारत मंडपम, नई दिल्ली में आयोजित हरित हाइड्रोजन पर अंतर्राष्ट्रीय सम्मेलन (ICGH 2025) का आयोजन किस मंत्रालय द्वारा किया गया था?

(1) Ministry of Housing and Urban Affairs / आवासन और शहरी कार्य मंत्रालय

(2) **Ministry of New and Renewable Energy / नवीन और नवीकरणीय ऊर्जा मंत्रालय ✔**

(3) Ministry of External Affairs / विदेश मंत्रालय

(4) Ministry of Finance / वित्त मंत्रालय

Q.64 Which of the following was celebrated by the Indian Army's Western Command on 15 September 2025?

15 सितंबर 2025 को भारतीय सेना की पश्चिमी कमान द्वारा निम्नलिखित में से क्या मनाया गया?

(1) 33rd Raising Day / 33वाँ स्थापना दिवस

(2) **79th Raising Day / 79वाँ स्थापना दिवस ✔**

(3) 40th Raising Day / 40वाँ स्थापना दिवस

(4) 58th Raising Day / 58वाँ स्थापना दिवस

Q.65 Which one of the following health technologies was licensed to SmartQR Technologies Private Limited during the India MedTech Expo 2025?

इंडिया मेडटेक एक्सपो 2025 के दौरान निम्नलिखित में से कौन-सी स्वास्थ्य प्रौद्योगिकी स्मार्टक्यूआर टेक्नोलॉजीज प्राइवेट लिमिटेड को लाइसेंस प्रदान की गई थी?

(1) Diagnostic ELISA kits for the detection of IgM antibodies against Japanese Encephalitis virus / जापानी इंसेफेलाइटिस वायरस के विरुद्ध IgM एंटीबॉडी का पता लगाने के लिए नैदानिक ELISA किट

(2) AFuPEPLISA immunodiagnostic kit for detecting antibodies to Aspergillus fumigatus in patient sera / रोगियों के सीरम में एस्परजिलस फ्यूमिगेटस के प्रति एंटीबॉडी का पता लगाने के लिए AFuPEPLISA प्रतिरक्षा-नैदानिक किट

(3) **Colorimetric RT-LAMP (isothermal) assay for rapid detection of Nipah virus / निपाह वायरस का शीघ्र पता लगाने के लिए वर्णमितीय RT-LAMP (समतापीय) परख ✔**

(4) Novel glycoconjugate Salmonella vaccine / नवीन ग्लाइकोकंजुगेट साल्मोनेला टीका

Q.66 In November 2025, which university led the medal tally at the Khelo India University Games (KIUG) 2025?

नवंबर 2025 में, खेलो इंडिया विश्वविद्यालय खेल (KIUG) 2025 में किस विश्वविद्यालय ने पदक तालिका में शीर्ष स्थान प्राप्त किया?

(1) Guru Nanak Dev University / गुरु नानक देव विश्वविद्यालय

(2) **Chandigarh University / चंडीगढ़ विश्वविद्यालय ✔**

(3) Lovely Professional University / लवली प्रोफेशनल विश्वविद्यालय

(4) Jain University / जैन विश्वविद्यालय

Q.67 In the Kerala Budget 2026-27, an amount of ₹62 crore has been earmarked to provide financial assistance to:

केरल बजट 2026-27 में, ₹62 करोड़ की राशि किसे वित्तीय सहायता प्रदान करने के लिए निर्धारित की गई है?

(1) Institutions for urban infrastructure development / शहरी अवसंरचना विकास के लिए संस्थाएँ

(2) Institutions for defence modernization / रक्षा आधुनिकीकरण के लिए संस्थाएँ

(3) **Institutions caring for children with intellectual challenge / बौद्धिक अक्षमता वाले बच्चों की देखभाल करने वाली संस्थाएँ ✔**

(4) Institutions promoting industrial growth / औद्योगिक विकास को बढ़ावा देने वाली संस्थाएँ

Q.68 Kalpana Patowary is an Indian playback and folk singer from _____.

कल्पना पटवारी _____ की एक भारतीय पार्श्व एवं लोक गायिका हैं।

(1) Assam / असम ✔

(2) Punjab / पंजाब

(3) Bihar / बिहार

(4) Nagaland / नागालैंड

Q.69 On November 23, 2025, the Hayli Gubbi volcano erupted unexpectedly, marking its first known eruption since the end of the last ice age. In which country did this occur?

23 नवंबर, 2025 को हेली गुब्बी ज्वालामुखी में अप्रत्याशित रूप से विस्फोट हुआ, जो पिछले हिमयुग की समाप्ति के बाद से इसका पहला ज्ञात विस्फोट था। यह किस देश में हुआ?

(1) Japan / जापान

(2) Ethiopia / इथियोपिया ✔

(3) Indonesia / इंडोनेशिया

(4) Singapore / सिंगापुर

Q.70 In the preparation of an emulsion, what is the primary function of an emulsifier?

पायस (इमल्शन) बनाने में, पायसीकारक (इमल्सीफायर) का प्राथमिक कार्य क्या होता है?

(1) To prevent microbial growth in the mixture / मिश्रण में सूक्ष्मजीवों की वृद्धि को रोकना

(2) To increase the acidity of the mixture / मिश्रण की अम्लता बढ़ाना

(3) To keep immiscible liquids uniformly mixed and prevent their separation / अमिश्रणीय द्रवों को एकसमान रूप से मिश्रित रखना और उनके पृथक्करण को रोकना ✔

(4) To speed up chemical reactions in the mixture / मिश्रण में रासायनिक अभिक्रियाओं को तीव्र करना

Q.71 Who wrote Why the Constitution Matters, released in August 2025?

अगस्त 2025 में जारी पुस्तक 'व्हाई द कॉन्स्टिट्यूशन मैटर्स' (Why the Constitution Matters) किसने लिखी है?

(1) Vivek Singhal / विवेक सिंघल

(2) Amish Tripathi / अमीश त्रिपाठी

(3) D.Y. Chandrachud / डी.वाई. चंद्रचूड़ ✔

(4) Priyambada Jayakumar / प्रियंबदा जयकुमार

Q.72 Which Indian university was ranked highest in the QS World University Rankings 2026?

QS वर्ल्ड यूनिवर्सिटी रैंकिंग 2026 में किस भारतीय विश्वविद्यालय को सर्वोच्च स्थान प्राप्त हुआ?

(1) IISc Bangalore / IISc बेंगलुरु

(2) IIT Madras / IIT मद्रास

(3) IIT Bombay / IIT बॉम्बे

(4) IIT Delhi / IIT दिल्ली ✔

Q.73 The Contact Process is an industrial method used for the large-scale manufacture of which chemical substance?

संपर्क प्रक्रम (कॉन्टैक्ट प्रोसेस) एक औद्योगिक विधि है, जिसका उपयोग किस रासायनिक पदार्थ के बड़े पैमाने पर निर्माण के लिए किया जाता है?

(1) Sulfuric acid / सल्फ्यूरिक अम्ल ✔

(2) Phosphoric acid / फॉस्फोरिक अम्ल

(3) Hydrochloric acid / हाइड्रोक्लोरिक अम्ल

(4) Nitric acid / नाइट्रिक अम्ल

Q.74 Who among the following took oath as the Chief Minister of Manipur on 4th February 2026?
निम्नलिखित में से किसने 4 फरवरी 2026 को मणिपुर के मुख्यमंत्री के रूप में शपथ ली?

(1) Yumnam Khemchand Singh / युमनाम खेमचंद सिंह ✔
(2) Okram Ibobi Singh / ओकराम इबोबी सिंह
(3) Awangbow Newmai / अवांगबो न्यूमाई
(4) Govindas Konthoujam / गोविंददास कोंथौजम

Q.75 What is the term used to describe the rate of flow of electric charge through a conductor?
किसी चालक से होकर विद्युत आवेश के प्रवाह की दर को किस पद द्वारा वर्णित किया जाता है?

(1) Resistivity / प्रतिरोधकता
(2) Potential difference / विभवांतर
(3) Electric field / विद्युत क्षेत्र
(4) Electric current / विद्युत धारा ✔

Q.76 In September 2025, which international day fell on 27 September and is marked worldwide, including in India?
सितंबर 2025 में, कौन-सा अंतर्राष्ट्रीय दिवस 27 सितंबर को पड़ा, जिसे भारत सहित पूरे विश्व में मनाया जाता है?

(1) World Heritage Day / विश्व धरोहर दिवस
(2) World Health Day / विश्व स्वास्थ्य दिवस
(3) World Water Day / विश्व जल दिवस
(4) World Tourism Day / विश्व पर्यटन दिवस ✔

Q.77 In September 2025, Exercise Yudh Abhyas (India–USA) was conducted at which location?
सितंबर 2025 में, युद्ध अभ्यास (भारत–अमेरिका) किस स्थान पर आयोजित किया गया था?

(1) Ladakh / लद्दाख
(2) Andaman / अंडमान
(3) Alaska / अलास्का ✔
(4) Rajasthan / राजस्थान

Q.78 Which of the following Indian Naval ships took part in the multilateral naval exercise Malabar-2025 held near Guam in November 2025?
नवंबर 2025 में गुआम के निकट आयोजित बहुपक्षीय नौसैनिक अभ्यास मालाबार-2025 में निम्नलिखित में से किस भारतीय नौसेना पोत ने भाग लिया था?

(1) INS Vagir / INS वागीर
(2) INS Kesari / INS केसरी
(3) INS Vikramaditya / INS विक्रमादित्य
(4) INS Sahyadri / INS सह्याद्री ✔

Q.79 Which artist held the exhibition “Remembered Tales” in New Delhi in July 2025?
जुलाई 2025 में नई दिल्ली में किस कलाकार ने “रिमेम्बर्ड टेल्स” (Remembered Tales) प्रदर्शनी आयोजित की?

(1) Anjolie Ela Menon / अंजलि इला मेनन
(2) Tyeb Mehta / तैयब मेहता
(3) Bhupen Khakhar / भूपेन खक्खर
(4) Madhvi Parekh / माधवी पारेख ✔

Q.80 Who is regarded as the father of modern choreography in India for introducing modern dance through a novel and innovative approach?

एक नवीन और अभिनव दृष्टिकोण के माध्यम से आधुनिक नृत्य को प्रस्तुत करने के लिए किसे भारत में आधुनिक नृत्य-निर्देशन (कोरियोग्राफी) का जनक माना जाता है?

(1) Birju Maharaj / बिरजू महाराज

(2) Rukmini Devi Arundale / रुक्मिणी देवी अरुंडेल

(3) Shovana Narayan / शोवना नारायण

(4) Uday Shankar / उदय शंकर ✔

Arithmetical and Numerical Ability

Q.81 Mahip invested some money in HDFC at 10% per annum rate of interest. What would be the corresponding simple interest (in ₹), if after 2 years, Mahip got ₹115.50 as compound interest, considering annual compounding?

महीप ने HDFC में 10% वार्षिक ब्याज दर पर कुछ धनराशि निवेश की। यदि वार्षिक रूप से संयोजित होने पर, 2 वर्ष बाद महीप को चक्रवृद्धि ब्याज के रूप में ₹115.50 प्राप्त हुए, तो संगत साधारण ब्याज (₹ में) क्या होगा?

(1) 120

(2) 105

(3) 125

(4) 110 ✔

Q.82 Simplify the following expression:

$152 \div (6 + 2) - 3 \times 2$

निम्नलिखित व्यंजक को सरल कीजिए:

$152 \div (6 + 2) - 3 \times 2$

(1) 23

(2) 26

(3) 32

(4) 13 ✔

Q.83 Find the simple interest (in ₹) on ₹3000 as a sum borrowed at 8% per year rate of interest for 2 years.

8% वार्षिक ब्याज दर पर 2 वर्ष के लिए उधार ली गई ₹3000 की राशि पर साधारण ब्याज (₹ में) ज्ञात कीजिए।

(1) 480 ✔

(2) 420

(3) 440

(4) 520

Q.84 The sum of HCF and LCM is 176. The LCM is ten times the HCF. If one number is 80, then the other number will be:

HCF और LCM का योग 176 है। LCM, HCF का दस गुना है। यदि एक संख्या 80 है, तो दूसरी संख्या होगी:

(1) 40

(2) 16

(3) 32 ✔

(4) 24

Q.85 Sarang invests a certain sum of money in a bank at an interest rate of 10% per annum, compounded annually. After 2 years, the compound interest earned is ₹126. What would be the corresponding simple interest (in ₹) on the same principal for the same period at the same rate of interest?

सारंग किसी बैंक में वार्षिक रूप से संयोजित 10% वार्षिक ब्याज दर पर एक निश्चित धनराशि निवेश करता है। 2 वर्ष बाद, अर्जित चक्रवृद्धि ब्याज ₹126 है। समान मूलधन पर समान अवधि के लिए समान ब्याज दर पर संगत साधारण ब्याज (₹ में) क्या होगा?

(1) 135

(2) 130

(3) **120** ✔

(4) 115

Q.86 If N = 8 − [7 − {6 − (5 − 4 of 2)}], then the value of N − 4 is:

यदि N = 8 − [7 − {6 − (5 − 4 का 2)}] है, तो N − 4 का मान है:

(1) 5

(2) **6** ✔

(3) 4

(4) 3

Q.87 If the price of two dozen decorative articles is ₹2040, then the price of 32 articles is:

यदि दो दर्जन सजावटी वस्तुओं का मूल्य ₹2040 है, तो 32 वस्तुओं का मूल्य है:

(1) ₹2685

(2) **₹2720** ✔

(3) ₹2850

(4) ₹2500

Q.88 Two cyclists start together and go around a circular track of length 300 m. The first cyclist completes one round in 90 seconds. The second cyclist completes one round in 120 seconds. After how many minutes will they meet again at the starting point, and how many rounds will each have completed by then?

दो साइकिल चालक एक साथ चलना शुरू करते हैं और 300 m लंबाई वाले एक वृत्ताकार पथ का चक्कर लगाते हैं। पहला साइकिल चालक एक चक्कर 90 सेकंड में पूरा करता है। दूसरा साइकिल चालक एक चक्कर 120 सेकंड में पूरा करता है। कितने मिनट बाद वे प्रारंभिक बिंदु पर पुनः मिलेंगे, और तब तक प्रत्येक ने कितने चक्कर पूरे कर लिए होंगे?

(1) 9 minutes; 6 rounds and 4.5 rounds / 9 मिनट; 6 चक्कर और 4.5 चक्कर

(2) 18 minutes; 12 rounds and 9 rounds / 18 मिनट; 12 चक्कर और 9 चक्कर

(3) 12 minutes; 8 rounds and 6 rounds / 12 मिनट; 8 चक्कर और 6 चक्कर

(4) **6 minutes; 4 rounds and 3 rounds / 6 मिनट; 4 चक्कर और 3 चक्कर** ✔

Q.89 Find the average of 315, 120, 105 and 98.

315, 120, 105 और 98 का औसत ज्ञात कीजिए।

(1) 156.5

(2) 157.5

(3) 158.5

(4) **159.5** ✔

Q.90 Simplify:
$\sqrt[3]{(5832)}/\sqrt[4]{(10000)} \times 5/54 \times 66$
सरल कीजिए:
$\sqrt[3]{(5832)}/\sqrt[4]{(10000)} \times 5/54 \times 66$

(1) 11 ✔
(2) 8
(3) 3
(4) 19

Q.91 In what ratio should a grocer mix teas costing ₹29 per kg and ₹37 per kg, so that by selling the mixture at ₹42 per kg, he may gain 20%?
एक पंसारी को ₹29 प्रति kg और ₹37 प्रति kg मूल्य वाली चाय को किस अनुपात में मिलाना चाहिए, ताकि मिश्रण को ₹42 प्रति kg पर बेचकर उसे 20% का लाभ हो?

(1) 1:5
(2) 1:3 ✔
(3) 2:3
(4) 3:5

Q.92 The following graph shows the quantity (in metric tonnes) of rice and wheat stored in five different storage houses:

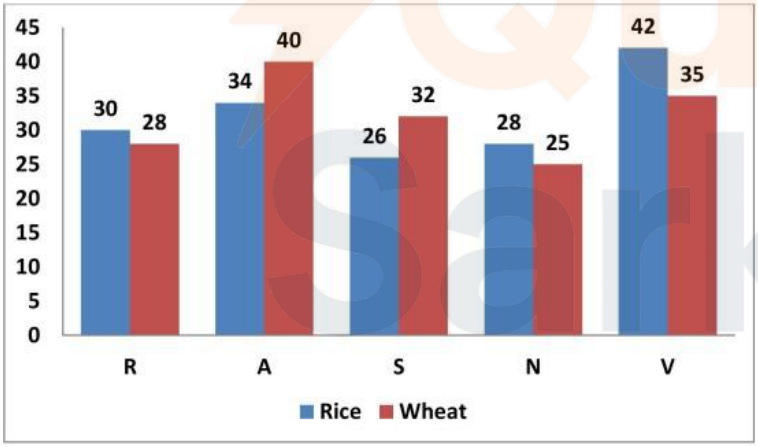

The fraction of wheat stored in storage house A of the total storage of rice in all five storage houses is:
निम्नलिखित ग्राफ पाँच अलग-अलग भंडार गृहों में भंडारित चावल और गेहूँ की मात्रा (मीट्रिक टन में) दर्शाता है:
भंडार गृह A में भंडारित गेहूँ, सभी पाँच भंडार गृहों में चावल के कुल भंडारण का कितना भाग है?

(1) 3/5
(2) 4/7
(3) 1/4 ✔
(4) 2/3

Q.93 In a test, B got 54 marks while A got 75 marks, out of 85 maximum marks. What percentage of A's marks was B's marks?
एक परीक्षा में, 85 अधिकतम अंकों में से B ने 54 अंक प्राप्त किए जबकि A ने 75 अंक प्राप्त किए। B के अंक, A के अंकों का कितना प्रतिशत थे?

(1) 72% ✔
(2) 138.89%
(3) 85%
(4) 88.23%

QuickSarkari.com | WhatsApp Channel | Telegram: t.me/quick_sarkari

Q.94 The following graph shows the monthly income (in thousands) of six different persons K, L, W, S, G, and H.



The number of persons who have income above the average income of all six persons is:

निम्नलिखित ग्राफ छह अलग-अलग व्यक्तियों K, L, W, S, G और H की मासिक आय (हजार में) दर्शाता है।

उन व्यक्तियों की संख्या, जिनकी आय सभी छह व्यक्तियों की औसत आय से अधिक है, कितनी है?

(1) 3

(2) 2

(3) **4** ✔

(4) 5

Q.95 Find the least number, which, when divided by 6, 14, and 20, leaves remainder 7 in each case.

वह छोटी से छोटी संख्या ज्ञात कीजिए, जिसे 6, 14 और 20 से विभाजित करने पर प्रत्येक स्थिति में 7 शेषफल बचता है।

(1) **427** ✔

(2) 421

(3) 413

(4) 433

Q.96 Find the sum of the squares of all natural numbers from 17 to 25 (both inclusive).

17 से 25 तक (दोनों को सम्मिलित करते हुए) सभी प्राकृत संख्याओं के वर्गों का योग ज्ञात कीजिए।

(1) **4029** ✔

(2) 4076

(3) 4107

(4) 4123

Q.97 In what ratio must a grocer mix two varieties of wheat worth ₹49 per kg and ₹126 per kg so that if he sells the mixture at ₹130 per kg, he may gain 25%?

एक पंसारी को ₹49 प्रति kg और ₹126 प्रति kg मूल्य वाली गेहूँ की दो किस्मों को किस अनुपात में मिलाना चाहिए, ताकि यदि वह मिश्रण को ₹130 प्रति kg पर बेचे, तो उसे 25% का लाभ हो?

(1) 4:9

(2) 2:3

(3) **2:5** ✔

(4) 3:7

QuickSarkari.com | WhatsApp Channel | Telegram: t.me/quick_sarkari

Q.98 Find the value of:
{ [(168 ÷ 12) − (5 × 4)] + (24 ÷ 3) } × 5
निम्नलिखित का मान ज्ञात कीजिए:
{ [(168 ÷ 12) − (5 × 4)] + (24 ÷ 3) } × 5

(1) 20
(2) 10 ✔
(3) 5
(4) 15

Q.99 The population of a village was 180000. It increased by 5% in the first year and increased by 30% in the second year. Its population after two years is _____.
एक गाँव की जनसंख्या 180000 थी। पहले वर्ष में इसमें 5% की वृद्धि हुई और दूसरे वर्ष में 30% की वृद्धि हुई। दो वर्ष बाद इसकी जनसंख्या _____ है।

(1) 189000
(2) 243000
(3) 234000
(4) 245700 ✔

Q.100 In what ratio must a grocer mix two varieties of wheat worth ₹49 per kg and ₹63 per kg so that if he sells the mixture at ₹93 per kg, he may gain 50%?
एक पंसारी को ₹49 प्रति kg और ₹63 प्रति kg मूल्य वाली गेहूँ की दो किस्मों को किस अनुपात में मिलाना चाहिए, ताकि यदि वह मिश्रण को ₹93 प्रति kg पर बेचे, तो उसे 50% का लाभ हो?

(1) 3:14
(2) 2:15
(3) 1:13 ✔
(4) 11:18

Q.101 Two trains of lengths 67 m and 83 m are moving in opposite directions at 10 m/s and 5 m/s, respectively. Find the time taken by the trains to cross each other.
67 m और 83 m लंबाई वाली दो रेलगाड़ियाँ विपरीत दिशाओं में क्रमशः 10 m/s और 5 m/s की चाल से चल रही हैं। रेलगाड़ियों द्वारा एक-दूसरे को पार करने में लिया गया समय ज्ञात कीजिए।

(1) 5 seconds / 5 सेकंड
(2) 20 seconds / 20 सेकंड
(3) 10 seconds / 10 सेकंड ✔
(4) 15 seconds / 15 सेकंड

Q.102 The cost price of a watch is ₹X. This watch is sold at ₹6,000. If the profit on this transaction is 20%, then the value of X is:
एक घड़ी का क्रय मूल्य ₹X है। यह घड़ी ₹6,000 में बेची जाती है। यदि इस लेन-देन पर लाभ 20% है, तो X का मान है:

(1) 5,000 ✔
(2) 4,000
(3) 4,500
(4) 4,800

Q.103 Divide ₹27,300 into three parts in such a way that half of the first part, one-fourth of the second part and one-eighth of the third part are equal. What is the value of first part (in ₹)?

₹27,300 को तीन भागों में इस प्रकार विभाजित कीजिए कि पहले भाग का आधा, दूसरे भाग का एक-चौथाई और तीसरे भाग का आठवाँ भाग बराबर हों। पहले भाग का मान (₹ में) क्या है?

(1) 3,900 ✔

(2) 4,100

(3) 3,700

(4) 3,600

Q.104 Find the area of a parallelogram whose base is 22 cm and height is 15 cm.

उस समांतर चतुर्भुज का क्षेत्रफल ज्ञात कीजिए जिसका आधार 22 cm और ऊँचाई 15 cm है।

(1) 330 cm^2 ✔

(2) 360 cm^2

(3) 350 cm^2

(4) 300 cm^2

Q.105 A cuboid has dimensions 12 cm × 3 cm × 4 cm. Find the length of its longest diagonal (in cm).

एक घनाभ की विमाएँ 12 cm × 3 cm × 4 cm हैं। इसके सबसे लंबे विकर्ण की लंबाई (cm में) ज्ञात कीजिए।

(1) 11

(2) 12

(3) 13 ✔

(4) 14

Q.106 If the third proportional to 8 and 12 is x, and the third proportional to 12 and x is 27, what is the value of x?

यदि 8 और 12 का तृतीयानुपाती x है, और 12 और x का तृतीयानुपाती 27 है, तो x का मान क्या है?

(1) 16

(2) 18 ✔

(3) 20

(4) 24

Q.107 The sides of a triangle are 26 cm, 28 cm, and 30 cm. Find the area of the triangle.

एक त्रिभुज की भुजाएँ 26 cm, 28 cm और 30 cm हैं। त्रिभुज का क्षेत्रफल ज्ञात कीजिए।

(1) 330 cm^2

(2) 363 cm^2

(3) 336 cm^2 ✔

(4) 326 cm^2

Q.108 A conical vessel has a height of 24 cm and a base radius of 7 cm. It is inverted and filled with water. Find the volume of water in the vessel. (Take π = 22/7)

एक शंक्वाकार पात्र की ऊँचाई 24 cm और आधार की त्रिज्या 7 cm है। इसे उल्टा करके पानी से भरा जाता है। पात्र में पानी का आयतन ज्ञात कीजिए। (मान लीजिए π = 22/7)

(1) $1322\,cm^3$

(2) $167\,cm^3$

(3) **$1232\,cm^3$ ✔**

(4) $176\,cm^3$

Q.109 A solid right circular cylinder of radius 10 cm and height 18 cm is completely melted. During melting, 25% of the material is lost. The remaining metal is recast into identical solid cylindrical rods, each with radius 5 cm and height 9 cm. How many such rods can be formed?

10 cm त्रिज्या और 18 cm ऊँचाई वाले एक ठोस लंब वृत्तीय बेलन को पूरी तरह से पिघलाया जाता है। पिघलाने के दौरान, 25% सामग्री नष्ट हो जाती है। शेष धातु को समान ठोस बेलनाकार छड़ों में पुनः ढाला जाता है, जिनमें से प्रत्येक की त्रिज्या 5 cm और ऊँचाई 9 cm है। ऐसी कितनी छड़ें बनाई जा सकती हैं?

(1) 7 rods / 7 छड़ें

(2) **6 rods / 6 छड़ें ✔**

(3) 9 rods / 9 छड़ें

(4) 10 rods / 10 छड़ें

Q.110 A shopkeeper bought six identical mobile phones for ₹78,000. He sold two of these mobile phones for ₹65,000. Find the gain percentage on the sale of the two mobile phones.

एक दुकानदार ने छह एक जैसे मोबाइल फोन ₹78,000 में खरीदे। उसने इनमें से दो मोबाइल फोन ₹65,000 में बेचे। दो मोबाइल फोन की बिक्री पर लाभ प्रतिशत ज्ञात कीजिए।

(1) 151%

(2) 147%

(3) **150% ✔**

(4) 153%

Q.111 The list price of a washing machine is ₹62500. It is sold to a retailer after two successive discounts of 12% and 13%. The retailer wants to earn a profit of 14% on his cost price after allowing a 24% discount (on its new list price) to the customer. At what price should he list the washing machine?

एक वाशिंग मशीन का सूची मूल्य ₹62500 है। इसे 12% और 13% की दो क्रमागत छूटों के बाद एक खुदरा विक्रेता को बेचा जाता है। खुदरा विक्रेता ग्राहक को (इसके नए सूची मूल्य पर) 24% की छूट देने के बाद अपने क्रय मूल्य पर 14% का लाभ अर्जित करना चाहता है। उसे वाशिंग मशीन का सूची मूल्य कितना रखना चाहिए?

(1) ₹71870

(2) ₹71968

(3) ₹71599

(4) **₹71775 ✔**

QuickSarkari.com | WhatsApp Channel | Telegram: t.me/quick_sarkari

Q.112 A cone and a hemisphere have equal volumes. The radius of the cone is 6 cm and height of the cone is 24 cm. Find the radius of the hemisphere. (Answer rounded off to 2 decimal places)

एक शंकु और एक अर्धगोले के आयतन बराबर हैं। शंकु की त्रिज्या 6 cm और शंकु की ऊँचाई 24 cm है। अर्धगोले की त्रिज्या ज्ञात कीजिए। (उत्तर को 2 दशमलव स्थानों तक पूर्णांकित करें)

(1) 7.56 cm ✔

(2) 7.42 cm

(3) 7.28 cm

(4) 7.14 cm

Q.113 The volume of a cuboidal box is 3 times the volume of a cubical box. If the length, breadth, and height of the cuboidal box are 12 cm, 9 cm, and 6 cm, respectively, then the side of the cube (in cm) is:

एक घनाभाकार बक्से का आयतन, एक घनाकार बक्से के आयतन का 3 गुना है। यदि घनाभाकार बक्से की लंबाई, चौड़ाई और ऊँचाई क्रमशः 12 cm, 9 cm और 6 cm हैं, तो घन की भुजा (cm में) है:

(1) 4

(2) 10

(3) 8

(4) 6 ✔

Q.114 Two taps can fill a cistern in 2 hours and 24 hours respectively. A third tap can empty it in 6 hours. How long (in hours) will it take to fill three-fourth of the empty cistern, if all of them are opened together?

दो नल एक टंकी को क्रमशः 2 घंटे और 24 घंटे में भर सकते हैं। एक तीसरा नल इसे 6 घंटे में खाली कर सकता है। यदि तीनों नलों को एक साथ खोल दिया जाए, तो खाली टंकी का तीन-चौथाई भाग भरने में कितना समय (घंटों में) लगेगा?

(1) 2 ✔

(2) 4

(3) 8

(4) 6

Q.115 A motorboat covers 24 km downstream in 2 hours and returns the same distance upstream in 3 hours. Find the speed of the stream.

एक मोटरबोट धारा के अनुकूल 24 km की दूरी 2 घंटे में तय करती है और धारा के प्रतिकूल उतनी ही दूरी 3 घंटे में तय करके लौटती है। धारा की चाल ज्ञात कीजिए।

(1) 2.25 km/hr

(2) 2 km/hr ✔

(3) 2.75 km/hr

(4) 2.5 km/hr

Q.116 A shopkeeper offers a discount of 60% on the marked price of an article but still wants to earn a profit of 40% on the cost price. If the cost price of the article is ₹2,000, find the marked price (in ₹).

एक दुकानदार किसी वस्तु के अंकित मूल्य पर 60% की छूट देता है, लेकिन फिर भी क्रय मूल्य पर 40% का लाभ अर्जित करना चाहता है। यदि वस्तु का क्रय मूल्य ₹2,000 है, तो अंकित मूल्य (₹ में) ज्ञात कीजिए।

(1) 6,800

(2) 7,000 ✔

(3) 6,400

(4) 7,200

Q.117 A sum of money is to be distributed among A, B, C, D and E such that A:B=2:1, C:B=3:1, D:C=3:2, and D:E=1:2, then the value of A:B:C:D:E is:
एक धनराशि को A, B, C, D और E के बीच इस प्रकार वितरित किया जाना है कि A:B=2:1, C:B=3:1, D:C=3:2 और D:E=1:2 हो, तो A:B:C:D:E का मान है:

(1) 4:2:6:9:18 ✔
(2) 4:2:18:6:7
(3) 3:5:8:12:14
(4) 1:2:3:4:6

Q.118 A cylindrical water tank has radius 2.5 m and height 4.2 m. Find its water capacity. (Use π = 22/7)
एक बेलनाकार पानी की टंकी की त्रिज्या 2.5 m और ऊँचाई 4.2 m है। इसकी जल धारिता ज्ञात कीजिए। (π = 22/7 का प्रयोग करें)

(1) 85,500 liters / 85,500 लीटर
(2) 84,000 liters / 84,000 लीटर
(3) 81,000 liters / 81,000 लीटर
(4) 82,500 liters / 82,500 लीटर ✔

Q.119 Two pipes fill a tank in 8 hours and 12 hours respectively. If both the pipes are opened together, how long will it take to fill the tank?
दो पाइप एक टंकी को क्रमशः 8 घंटे और 12 घंटे में भरते हैं। यदि दोनों पाइपों को एक साथ खोल दिया जाए, तो टंकी को भरने में कितना समय लगेगा?

(1) 4 hours 32 minutes / 4 घंटे 32 मिनट
(2) 4 hours 8 minutes / 4 घंटे 8 मिनट
(3) 4 hours 48 minutes / 4 घंटे 48 मिनट ✔
(4) 4 hours 24 minutes / 4 घंटे 24 मिनट

Q.120 Find the mean proportional between 29 and 116.
29 और 116 के बीच मध्यानुपाती ज्ञात कीजिए।

(1) 87
(2) 43.5
(3) 72.5
(4) 58 ✔

English Language and Comprehension

Q.121 A statement divided into different segments is given. Rearrange all the segments to form a coherent statement.
O. the scientist entered the laboratory
P. and adjusted the instruments
Q. with cautious steps
R. before starting the experiment
S. to ensure everything was calibrated correctly

(1) PRSOQ
(2) ORPQS
(3) OQPRS ✔
(4) QROPS

Q.122 Choose the correct form of the past tense to complete the sentence.
The company's valuation _____ significantly after its founders _____ a breakthrough partnership with an international firm.

(1) had risen / negotiated
(2) rose / negotiated
(3) was rising / had negotiated
(4) rose / had negotiated ✔

Q.123 In the given question, a statement divided into different segments is given.
Rearrange all the segments to form a coherent statement.
(O) especially gender disparities / (P) unless developers ensure fairness / (Q) can reinforce existing biases / (R) while artificial intelligence offers new tools for data analysis / (S) its use in workplaces

(1) RSPQO
(2) RSQOP ✔
(3) SRQPO
(4) RQOSP

Q.124 Select the correct one-word substitute for the given expression.
A person who believes in the existence of only one God

(1) Monotheist ✔
(2) Polytheist
(3) Atheist
(4) Spiritualist

Q.125 Choose the most appropriate option to complete the sentence.
She _____ the report before the deadline.

(1) completion
(2) completing
(3) completes
(4) completed ✔

Q.126 Complete the sentence with the most suitable preposition.
The conference was postponed _____ further notice because the keynote speaker was unavailable.

(1) since
(2) for
(3) until ✔
(4) from

Q.127 Select the most appropriate options to fill in the blanks.
The participants responded to the stimuli _____, but their reaction times increased _____ as fatigue set in.

(1) abruptly / rarely
(2) efficiently / temporarily
(3) casually / accidentally
(4) quickly / gradually ✔

QuickSarkari.com | WhatsApp Channel | Telegram: t.me/quick_sarkari

Q.128 Choose the option that best substitutes the underlined expression with one word, without changing the meaning.
The leader's speech was carefully worded to create a positive impression while revealing very little.

(1) diplomatic ✔
(2) persuasive
(3) guarded
(4) strategic

Q.129 Select the correct options to fill in the blanks.
_____ had the movie begun _____ the lights went off in the theatre.

(1) Hardly , and
(2) Until , then
(3) Scarcely , before
(4) No sooner , than ✔

Q.130 A statement is divided into different segments is given. The first segment is fixed. Rearrange the other segments to form a coherent and meaningful sentence.
The teacher emphasized
P. the importance of regular practice
Q. in mastering complex concepts
R. during the workshop
S. held for the senior students

(1) PRSQ
(2) PRQS
(3) PQRS ✔
(4) PQSR

Q.131 In the following question, a statement divided into different segments is given.
Rearrange all the segments to form a coherent statement.
A – located near Naples, Italy,
B – is one of the most dangerous volcanoes in the world
C – due to its explosive eruptions
D – Mount Vesuvius,

(1) D A B C ✔
(2) B D A C
(3) A D C B
(4) D B A C

Q.132 Select the option that can be used as a one-word substitute for the underlined words.
The patients trusted a fake expert who pretended to be a doctor without any real qualifications, convincing people with false assurances.

(1) Charlatan ✔
(2) Patron
(3) Polymath
(4) Oracle

Q.133 Select the option that can be used as a one-word substitute for the given group of words.
The study of elections and voting.

(1) Philology
(2) Sociology
(3) Psephology ✔
(4) History

Q.134 Parts of a sentence are given below in jumbled order. Arrange the parts in the correct order to form a meaningful sentence.
A. after completing the experiment
B. the students
C. recorded their observations carefully
D. in the laboratory notebook

(1) A – B – D – C
(2) A – C – B – D
(3) B – A – C – D ✔
(4) B – C – A – D

Q.135 Choose the option that best replaces the underlined words with a single word.
The scientist made a/an statement that was accepted as true without proof at the time.

(1) assumption ✔
(2) theory
(3) inference
(4) hypothesis

Q.136 Select the correct one-word substitution for the given phrase.
A person who is unable to read or write.

(1) Illiterate ✔
(2) Illogical
(3) Ignorant
(4) Uneducated

Q.137 Choose the correct option to complete the sentence.
By the time the storm began, the birds _____ to a safer place.

(1) had flown ✔
(2) will have flown
(3) have flown
(4) were flying

Q.138 Choose the option that best replaces the underlined words with a single word.
The actor delivered the dialogue in a/an deliberately exaggerated and dramatic manner.

(1) ornate
(2) theatrical ✔
(3) emotional
(4) expressive

QuickSarkari.com | WhatsApp Channel | Telegram: t.me/quick_sarkari

Q.139 In the given question, a statement divided into different segments is given. The first segment is fixed. Rearrange the other segments to form a coherent statement.

1 – A star's life begins

A – and traces of heavier elements,

B – largely comprising hydrogen and helium

C – of a gaseous nebula of material,

D – with the gravitational collapse E – as its total mass determines its evolution and fate

(1) 1 D C B A E ✔

(2) 1 C B D A E

(3) 1 D A C E B

(4) 1 D B C A E

Q.140 Complete the sentence with the most suitable verbs.

The principal _____ the new rule last week, but the teachers _____ it only after the official circular was sent.

(1) discussed; avoided

(2) rejected; followed

(3) implemented; announced

(4) announced; implemented ✔

Q.141 Select the option that expresses the given sentence in active voice.

The new library will have been inaugurated by the mayor before the school's anniversary celebration.

(1) The mayor inaugurated the new library before the school's anniversary celebration.

(2) The mayor has inaugurated the new library before the school's anniversary celebration.

(3) The mayor will inaugurate the new library before the school's anniversary celebration.

(4) The mayor will have inaugurated the new library before the school's anniversary celebration. ✔

Q.142 Choose the option that corrects the spelling error in the following sentence.

The profesor was extremely conscientious in his meticulous review of the research manuscript.

(1) meticolous

(2) professor ✔

(3) conscentious

(4) manoscript

Q.143 Choose the correct direct form of the given sentence.

The professor warned the students that they might fail the course if they did not submit the final paper on time.

(1) The professor warned, "They might fail the course if they do not submit the final paper on time."

(2) The professor told the students, "You would fail the course if you did not submit the final paper on time."

(3) The professor said to the students, "You might fail the course if you do not submit the final paper on time." ✔

(4) The professor said to the students, "You will fail the course if you do not submit the final paper on time."

Q.144 Select the wrongly spelt word.

(1) Camouflage
(2) Supersede
(3) Cemetary ✔
(4) Surveillance

Q.145 Select the wrongly spelt word from the given alternatives.

(1) Embarrass
(2) Questionnaire
(3) Priviledge ✔
(4) Millennium

Q.146 Choose the sentence that uses the future tense correctly.

(1) By next week, I will have completed my exams. ✔
(2) I would complete my exams last month.
(3) I complete my exams every year.
(4) I will completing my exams soon.

Q.147 Identify the misspelt word in the following sentence.
The laboratory's equiptment was recently upgraded.

(1) laboratory
(2) upgraded
(3) recently
(4) equiptment ✔

Q.148 Select the most appropriate passive voice of the given sentence.
The blue-eyed scientist discovered some new species in my city.

(1) Some new species in my city is discovered by the blue-eyed scientist.
(2) Some new species in my city was discovered by the blue-eyed scientist.
(3) Some new species in my city was being discovered by the blue-eyed scientist.
(4) Some new species in my city were discovered by the blue-eyed scientist. ✔

Q.149 Choose the correct active form.
The clue was found by the inspector near the crime scene.

(1) The clue had been found near the crime scene by the inspector.
(2) The inspector found the clue near the crime scene. ✔
(3) The clue found the inspector near the crime scene.
(4) The inspector was finding the clue near the crime scene.

Q.150 Choose the option that correctly rectifies the underlined misspelt word in the sentence below.
The scientist conducted an experimant to test her hypothesis.

(1) experement
(2) experimint
(3) experiment ✔
(4) experament

Q.151

Read the given passage carefully and answer the questions that follow.
Alexander found himself at a New York airport in the midst of a crowd with suitcases and bundles, pushing past him, shoving, and stepping on his heels. They looked like robots, half of them with a cell phone clamped to one ear and talking into the air like crazy people. He was alone, his backpack slung over his shoulder and a wrinkled twenty-dollar bill in his hand. He had another three folded and stuck down his boots. His father had cautioned him to be careful; in that huge city, things were not the way they were in the small town on the California coast where they lived, where nothing ever happened. The three children had grown up playing outside with the other kids; they knew everyone and went in and out of their neighbours' homes as if they were their own.

Where did Alexander find himself at the beginning of the passage?

(1) At a New York airport ✔
(2) In a California park
(3) At a railway station in Boston
(4) At his school playground

Q.152

Read the given passage carefully and answer the questions that follow.
Alexander found himself at a New York airport in the midst of a crowd with suitcases and bundles, pushing past him, shoving, and stepping on his heels. They looked like robots, half of them with a cell phone clamped to one ear and talking into the air like crazy people. He was alone, his backpack slung over his shoulder and a wrinkled twenty-dollar bill in his hand. He had another three folded and stuck down his boots. His father had cautioned him to be careful; in that huge city, things were not the way they were in the small town on the California coast where they lived, where nothing ever happened. The three children had grown up playing outside with the other kids; they knew everyone and went in and out of their neighbours' homes as if they were their own.

What does the passage suggest about life in Alexander's hometown compared to New York?

(1) It was dangerous and unpredictable.
(2) It was busy and fast-paced.
(3) It was equally crowded and noisy.
(4) It was quiet, familiar, and safe. ✔

Q.153

Read the given passage carefully and answer the questions that follow.
Alexander found himself at a New York airport in the midst of a crowd with suitcases and bundles, pushing past him, shoving, and stepping on his heels. They looked like robots, half of them with a cell phone clamped to one ear and talking into the air like crazy people. He was alone, his backpack slung over his shoulder and a wrinkled twenty-dollar bill in his hand. He had another three folded and stuck down his boots. His father had cautioned him to be careful; in that huge city, things were not the way they were in the small town on the California coast where they lived, where nothing ever happened. The three children had grown up playing outside with the other kids; they knew everyone and went in and out of their neighbours' homes as if they were their own.

From the description of the crowd, what can be inferred about Alexander's feelings?

(1) He feels proud to be in a big city.
(2) He feels excited by the energy of the airport.
(3) He feels curious but confident.
(4) He feels lonely and overwhelmed by the chaos. ✔

Q.154

Read the given passage carefully and answer the questions that follow.
Alexander found himself at a New York airport in the midst of a crowd with suitcases and bundles, pushing past him, shoving, and stepping on his heels. They looked like robots, half of them with a cell phone clamped to one ear and talking into the air like crazy people. He was alone, his backpack slung over his shoulder and a wrinkled twenty-dollar bill in his hand. He had another three folded and stuck down his boots. His father had cautioned him to be careful; in that huge city, things were not the way they were in the small town on the California coast where they lived, where nothing ever happened. The three children had grown up playing outside with the other kids; they knew everyone and went in and out of their neighbours' homes as if they were their own.

Choose the word that means the opposite of 'clamped' as used in the passage.

(1) fastened
(2) undone ✔
(3) pressed
(4) secured

Q.155

Read the given passage carefully and answer the questions that follow.
Alexander found himself at a New York airport in the midst of a crowd with suitcases and bundles, pushing past him, shoving, and stepping on his heels. They looked like robots, half of them with a cell phone clamped to one ear and talking into the air like crazy people. He was alone, his backpack slung over his shoulder and a wrinkled twenty-dollar bill in his hand. He had another three folded and stuck down his boots. His father had cautioned him to be careful; in that huge city, things were not the way they were in the small town on the California coast where they lived, where nothing ever happened. The three children had grown up playing outside with the other kids; they knew everyone and went in and out of their neighbours' homes as if they were their own.

Which of the following would be the most suitable title for the passage?

(1) A Small-Town Boy in a Big City ✔
(2) The Airport That Never Sleeps
(3) The Lost Backpack
(4) A Busy Day in New York

Q.156

Read the given passage carefully and answer the questions that follow.
Nestled in the rocky hills near Kolar, Karnataka, lies Antara Gange, a place locals call "the Ganges from within." A small stream of crystal water flows endlessly from the mouth of a stone bull, even in the hottest summers. Scientists say it might come from an underground spring, yet no one has ever found its true source. At night, villagers claim to hear faint murmurs rising from the caves— voices that sound like chanting monks. Some believe the water carries blessings; others whisper that it hides ancient secrets from forgotten sages. Pilgrims climb the steps at dawn, offering flowers and prayers, while curious travelers enter the dark caverns, their lamps trembling against the stone walls. Whether myth or mystery, Antara Gange remains one of Karnataka's most enigmatic wonders—its silent stream still flowing, its secret still untold.

What unusual feature makes Antara Gange famous?

(1) A waterfall that disappears each summer
(2) An endless stream flowing from a stone bull ✔
(3) A temple that glows at night
(4) A cave filled with gold idols

Q.157

Read the given passage carefully and answer the questions that follow.
Nestled in the rocky hills near Kolar, Karnataka, lies Antara Gange, a place locals call "the Ganges from within." A small stream of crystal water flows endlessly from the mouth of a stone bull, even in the hottest summers. Scientists say it might come from an underground spring, yet no one has ever found its true source. At night, villagers claim to hear faint murmurs rising from the caves— voices that sound like chanting monks. Some believe the water carries blessings; others whisper that it hides ancient secrets from forgotten sages. Pilgrims climb the steps at dawn, offering flowers and prayers, while curious travelers enter the dark caverns, their lamps trembling against the stone walls. Whether myth or mystery, Antara Gange remains one of Karnataka's most enigmatic wonders—its silent stream still flowing, its secret still untold.

What is the tone of the passage?

(1) Humorous and casual
(2) **Mysterious and reverent ✔**
(3) Factual and informative
(4) Skeptical and argumentative

Q.158

Read the given passage carefully and answer the questions that follow.
Nestled in the rocky hills near Kolar, Karnataka, lies Antara Gange, a place locals call "the Ganges from within." A small stream of crystal water flows endlessly from the mouth of a stone bull, even in the hottest summers. Scientists say it might come from an underground spring, yet no one has ever found its true source. At night, villagers claim to hear faint murmurs rising from the caves— voices that sound like chanting monks. Some believe the water carries blessings; others whisper that it hides ancient secrets from forgotten sages. Pilgrims climb the steps at dawn, offering flowers and prayers, while curious travelers enter the dark caverns, their lamps trembling against the stone walls. Whether myth or mystery, Antara Gange remains one of Karnataka's most enigmatic wonders—its silent stream still flowing, its secret still untold.

What can be inferred about the villagers' attitude toward the stream?

(1) They use it only for farming.
(2) They fear it and avoid the area.
(3) They think it is ordinary.
(4) **They consider it sacred and mysterious. ✔**

QuickSarkari.com | WhatsApp Channel | Telegram: t.me/quick_sarkari

Q.159

Read the given passage carefully and answer the questions that follow.
Nestled in the rocky hills near Kolar, Karnataka, lies Antara Gange, a place locals call "the Ganges from within." A small stream of crystal water flows endlessly from the mouth of a stone bull, even in the hottest summers. Scientists say it might come from an underground spring, yet no one has ever found its true source. At night, villagers claim to hear faint murmurs rising from the caves— voices that sound like chanting monks. Some believe the water carries blessings; others whisper that it hides ancient secrets from forgotten sages. Pilgrims climb the steps at dawn, offering flowers and prayers, while curious travelers enter the dark caverns, their lamps trembling against the stone walls. Whether myth or mystery, Antara Gange remains one of Karnataka's most enigmatic wonders—its silent stream still flowing, its secret still untold.

How is the passage structured?

(1) As a dialogue between a pilgrim and a scientist
(2) **As a description that blends fact, belief, and mystery ✔**
(3) As a comparison between science and superstition
(4) As a chronological travel diary

Q.160

Read the given passage carefully and answer the questions that follow.
Nestled in the rocky hills near Kolar, Karnataka, lies Antara Gange, a place locals call "the Ganges from within." A small stream of crystal water flows endlessly from the mouth of a stone bull, even in the hottest summers. Scientists say it might come from an underground spring, yet no one has ever found its true source. At night, villagers claim to hear faint murmurs rising from the caves— voices that sound like chanting monks. Some believe the water carries blessings; others whisper that it hides ancient secrets from forgotten sages. Pilgrims climb the steps at dawn, offering flowers and prayers, while curious travelers enter the dark caverns, their lamps trembling against the stone walls. Whether myth or mystery, Antara Gange remains one of Karnataka's most enigmatic wonders—its silent stream still flowing, its secret still untold.

Choose the word opposite in meaning to 'faint' as used in the passage.

(1) Vivid
(2) Glaring
(3) Dim
(4) **Intense ✔**

Hindi Language and Comprehension

Q.161 दिए गए वाक्यों में से सही क्रम वाले वाक्य का चयन कीजिए।

(1) **ऐसा करने में कोई हानि नहीं है। ✔**
(2) ऐसा करने है में कोई हानि नहीं।
(3) ऐसा करने है हानि नहीं में कोई।
(4) है ऐसा करने में कोई हानि नहीं।

Q.162 डॉक्टर हॉस्पिटल .....चला गया है ।
उपरोक्त वाक्य में रिक्त स्थान की पूर्ति के लिए उचित कारक शब्द का चयन करें –

(1) से ✔
(2) पर
(3) के
(4) को

Q.163 निम्नलिखित में से किस मुहावरे का अर्थ 'डर जाना या भयभीत हो जाना' है?

(1) भीगी बिल्ली बन जाना ✔
(2) युधिष्ठिर होना
(3) रंग जमना
(4) रुस्तम होना

Q.164 'जाए लाख रहे साख' लोकोक्ति का सही अर्थ है –

(1) पूर्ण अधिकार होना
(2) धन भले ही लगे, इज्जत बचनी चाहिए ✔
(3) परिश्रम भले हो पर धन बना रहे
(4) नियमानुसार कार्य करना

Q.165 'जो आप से आप उत्पन्न हुआ हो' के लिए एक शब्द है-

(1) उद्भिज्ज
(2) परिभू
(3) स्वयंभू ✔
(4) पिण्डज

Q.166 निम्नलिखित वाक्य के रिक्त स्थान में उचित विशेषण की पूर्ति कीजिए- 'यह_____ पेंट है।'

(1) खट्टा
(2) दम्भी
(3) पुराना ✔
(4) खड़ूस

Q.167 निम्नलिखित वाक्य के रिक्त स्थान में उचित कारक चिह्न का प्रयोग करें - 'भारत अतिथि सत्कार एक अद्भुत और गौरवमयी परंपरा रही है।

(1) में, की ✔
(2) से, की
(3) में, पर
(4) से, में

Q.168 वह घर .....है ।
उपरोक्त वाक्य में रिक्त स्थान की पूर्ति के लिए उचित कारक शब्द का चयन करें –

(1) से
(2) की
(3) को
(4) में ✔

Quick Sarkari

Q.169 'हाथ से किए गए चातुर्य' के लिए एक शब्द है-

(1) हस्तलाघव

(2) हस्तसिद्धि

(3) **हस्तशिल्प ✔**

(4) हस्तकौशल

Q.170 'काठ की हांडी एक बार ही चढ़ती है' लोकोक्ति का सही अर्थ है –

(1) कठिन प्रयत्न एक बार ही किया जाता है

(2) पीड़ा को सहकर ही समझा जा सकता है

(3) **कपटपूर्ण व्यवहार एक ही बार चलता है ✔**

(4) बिना यत्न किए कुछ भी नहीं मिलता

Q.171 सार्वनामिक विशेषण का प्रयोग करते हुए वाक्य पूर्ण करें - .....महिला तो देखी नहीं

(1) बुद्धिमान

(2) **ऐसी ✔**

(3) सुन्दर

(4) मोटी

Q.172 दिए गए विकल्पों में से निम्नलिखित लोकोक्ति का सटीक अर्थ चुनिए - 'अंधों के आगे रोना,अपना दीदा खोना '

(1) झगड़ा लगाकर अलग हो जाना

(2) **नासमझ को समझाने का व्यर्थ प्रयास ✔**

(3) बेमेल स्थिति

(4) अपने लिए विपत्ति का आमंत्रण

Q.173 'कंगाली में आटा गीला' लोकोक्ति का अर्थ है

(1) **एक मुसीबत पर दूसरी मुसीबत आ पड़ना ✔**

(2) हालात बदलते रहना

(3) उलटी बात करना

(4) छोटे अपराध के लिए कड़ा दंड मिलना

Q.174 शिक्षक ने छात्र .....पढ़ाया ।
उपरोक्त वाक्य में रिक्त स्थान की पूर्ति के लिए उचित कारक शब्द का चयन करें –

(1) का

(2) के

(3) **को ✔**

(4) से

Q.175 दिए गए वाक्यों में से सही क्रम वाले वाक्य का चयन कीजिए।

(1) है मैंने पिंटू को नहीं मारा।

(2) **मैंने पिंटू को नहीं मारा है। ✔**

(3) नहीं मारा पिंटू मैंने को है।

(4) पिंटू मैंने को नहीं मारा है।

Q.176 'जिस पर अभियोग लगाया गया हो' 'वाक्यांश के लिए सार्थक शब्द होगा-

(1) अभियोग

(2) अभूतपूर्व

(3) अभिलाषी

(4) **अभियुक्त ✔**

Q.177 वह बहुत ___ व्यक्ति है, दूसरों की मदद करने में हमेशा आगे रहता है। रिक्त स्थानों की पूर्ति उचित विशेषण से करें।

(1) दया

(2) **दयालु ✔**

(3) दयामय

(4) दयालुता

Q.178 नीचे दिए गए वाक्यांश के लिए चार विकल्प में से कोई एक सार्थक शब्द का चुनाव कीजिए।
जिसकी गहराई का पता न चल सके

(1) अटल

(2) **अथाह ✔**

(3) अवैध

(4) अग्रणी

Q.179 'शव जलाने का स्थान' वाक्यांश के लिए सार्थक शब्द होगा-

(1) संविदा

(2) शास्त्रज्ञ

(3) **श्मशान ✔**

(4) शुक्लपक्ष

Q.180 'अपने झोपड़े की खैर मनाओ' लोकोक्ति का सही अर्थ है -

(1) **अपनी कुशल देखो ✔**

(2) दुहरा फसाद

(3) बिलकुल स्वतंत्र

(4) मूर्ख किन्तु धनी

Q.181 दिये गए वाक्य के रेखांकित शब्द का विलोम शब्द चुनिए – शिक्षा और विज्ञान का विकास समाज के उत्थान के लिए अनिवार्य है।

(1) उन्नयन

(2) आरोहण

(3) **पतन ✔**

(4) उत्क्रमण

Q.182 दिये गए वाक्य के रेखांकित शब्द का विलोम शब्द चुनिए – साहित्यकार की उत्कृष्ट कृति उसे साहित्य के इतिहास में अमर स्थान दिलाती है।

(1) **निकृष्ट ✔**

(2) आकृष्ट

(3) अरिष्ट

(4) आक्रुष्ट

QuickSarkari.com | WhatsApp Channel | Telegram: t.me/quick_sarkari

Q.183 दिए गए विकल्पों में से शुद्ध वाक्य का विकल्प चुनें -

(1) हमें प्रतिदीन व्यायाम करनी चाहिए।

(2) मुझसे यह काम शंभव नहीं।

(3) मैं हल करने की तलास में हूं।

(4) यह कहना आपकी गलती है। ✔

Q.184 दिये गये वाक्य के किस भाग में त्रुटि है?

मानव जीवन को सुखमय बनाने के लिए प्रकृति ने अनेक संसाधन पृदान किए हैं।

(1) मानव जीवन को

(2) प्रकृति ने अनेक संसाधन

(3) पृदान किए हैं। ✔

(4) सुखमय बनाने के लिए

Q.185 दिये गये वाक्य के किस भाग में त्रुटि है?

मौसम का परिवतर्न प्राकृतिक सौन्दर्य में चौगुनी वृद्धिकर देता है।

(1) मौसम का परिवतर्न ✔

(2) प्राकृतिक सौन्दर्य में

(3) कर देता है।

(4) चौगुनी वृद्धि

Q.186 निम्नलिखित वाक्य के रेखांकित शब्द का विलोम बताएं - 'मानव प्रतिदिन क्रिकेट खेलने का अभ्यास करता है।'

(1) अनभ्यास ✔

(2) प्रयास

(3) वरदान

(4) आशीष

Q.187 निम्नलिखित वाक्यों में से शुद्ध वर्तनी वाले वाक्य का चयन कीजिए-

(1) वह व्यक्ति निर्मोही है। ✔

(2) वह व्यक्ति निर्मोहि है।

(3) वह व्यक्ति निर्मोह है।

(4) वह व्यक्ति निर्मोहा है।

Q.188 निम्नलिखित वाक्य के रेखांकित शब्द का विलोम बताएं - 'गुरु जी ने गणित के जटिल प्रश्नों का हल करना सिखाया।'

(1) कठोर

(2) मुश्किल

(3) सरल ✔

(4) असंभव

Q.189 निम्नलिखित वाक्य में 'स्वीकार' के लिए उचित विलोम शब्द की पूर्ति कीजिए- गुरु ने विद्यार्थी का कार्य स्वीकार किया, परंतु उसकी गलती _____कर दी।

(1) अलग

(2) अस्वीकार ✔

(3) इंकार

(4) अनसुना

Q.190 दिये गए वाक्य के रेखांकित शब्द का पर्यायवाची शब्द चुनिए – भगवान विष्णु के दशावतार भारतीय संस्कृति और धार्मिक प्रतीकों में गहन महत्त्व रखते हैं।

(1) चंद्रशेखर
(2) **मुकुंद ✔**
(3) त्रिलोचन
(4) गिरीश

Q.191

निम्नलिखित गद्यांश के आधार पर प्रश्नों के उत्तर दें - जब मोबाइल का आविष्कार हुआ था, तब किसी भी व्यक्ति ने कल्पना भी नहीं की होगी कि मानव सभ्यता में इतना अधिक परिवर्तन हो जाएगा तथा मानव जीवन मोबाइल के इर्द-गिर्द घूमता रहेगा। आज स्थिति ऐसी हो गई है कि व्यक्ति मोबाइल के बिना स्वयं को अपाहिज समझने लगा है। मोबाइल फोन के कारण मानव जीवन सहज और सुखमय हो गया है। यह आज के मानव की अनिवार्य आवश्यकता बन चुका है। कहा जा सकता है की एक छोटा-सा मोबाइल जो व्यक्ति के शर्ट के पॉकेट में आ जाता है, ने मानव जीवन में इतना अधिक क्रांतिकारी परिवर्तन ला दिया है, जितना किसी अन्य आविष्कार ने नहीं किया। इस मोबाइल ने दुनिया के सबसे अमीर व्यक्ति से लेकर सबसे गरीब व्यक्ति के जीवन प्रभावित किया है। मोबाइल ने साधारण लोगों की जीवन शैली में किस सीमा तक प्रवेश कर लिया है, इसका अनुमान हम व्यक्ति के दैनिक जीवन को देखकर लगा सकते हैं।

उपर्युक्त गद्यांश का शीर्षक बताएं -

(1) टेलीविजन
(2) मनोरंजन
(3) **मोबाइल ✔**
(4) स्वस्थ्य

Q.192

निम्नलिखित गद्यांश के आधार पर प्रश्नों के उत्तर दें - जब मोबाइल का आविष्कार हुआ था, तब किसी भी व्यक्ति ने कल्पना भी नहीं की होगी कि मानव सभ्यता में इतना अधिक परिवर्तन हो जाएगा तथा मानव जीवन मोबाइल के इर्द-गिर्द घूमता रहेगा। आज स्थिति ऐसी हो गई है कि व्यक्ति मोबाइल के बिना स्वयं को अपाहिज समझने लगा है। मोबाइल फोन के कारण मानव जीवन सहज और सुखमय हो गया है। यह आज के मानव की अनिवार्य आवश्यकता बन चुका है। कहा जा सकता है की एक छोटा-सा मोबाइल जो व्यक्ति के शर्ट के पॉकेट में आ जाता है, ने मानव जीवन में इतना अधिक क्रांतिकारी परिवर्तन ला दिया है, जितना किसी अन्य आविष्कार ने नहीं किया। इस मोबाइल ने दुनिया के सबसे अमीर व्यक्ति से लेकर सबसे गरीब व्यक्ति के जीवन प्रभावित किया है। मोबाइल ने साधारण लोगों की जीवन शैली में किस सीमा तक प्रवेश कर लिया है, इसका अनुमान हम व्यक्ति के दैनिक जीवन को देखकर लगा सकते हैं।

मोबाइल का मानव जीवन पर क्या प्रभाव पड़ा है?

(1) मोबाइल मानव जीवन पर बोझ बन गया है।
(2) **मोबाइल से मानव जीवन सहज और सुखमय हो गया है। ✔**
(3) मोबाइल से मानव जीवन में कोई परिवर्तन नहीं हुआ है।
(4) मोबाइल से मानव जीवन में आर्थिक तंगी आ गई है।

Q.193

निम्नलिखित गद्यांश के आधार पर प्रश्नों के उत्तर दें - जब मोबाइल का आविष्कार हुआ था, तब किसी भी व्यक्ति ने कल्पना भी नहीं की होगी कि मानव सभ्यता में इतना अधिक परिवर्तन हो जाएगा तथा मानव जीवन मोबाइल के इर्द-गिर्द घूमता रहेगा। आज स्थिति ऐसी हो गई है कि व्यक्ति मोबाइल के बिना स्वयं को अपाहिज समझने लगा है। मोबाइल फोन के कारण मानव जीवन सहज और सुखमय हो गया है। यह आज के मानव की अनिवार्य आवश्यकता बन चुका है। कहा जा सकता है की एक छोटा-सा मोबाइल जो व्यक्ति के शर्ट के पॉकेट में आ जाता है, ने मानव जीवन में इतना अधिक क्रांतिकारी परिवर्तन ला दिया है, जितना किसी अन्य आविष्कार ने नहीं किया। इस मोबाइल ने दुनिया के सबसे अमीर व्यक्ति से लेकर सबसे गरीब व्यक्ति के जीवन प्रभावित किया है। मोबाइल ने साधारण लोगों की जीवन शैली में किस सीमा तक प्रवेश कर लिया है, इसका अनुमान हम व्यक्ति के दैनिक जीवन को देखकर लगा सकते हैं।

मानव जीवन में सबसे अधिक परिवर्तन किससे हुआ?

(1) मोबाइल से ✔

(2) गाड़ी से

(3) धन से

(4) पूजा-पाठ से

Q.194

निम्नलिखित गद्यांश के आधार पर प्रश्नों के उत्तर दें - जब मोबाइल का आविष्कार हुआ था, तब किसी भी व्यक्ति ने कल्पना भी नहीं की होगी कि मानव सभ्यता में इतना अधिक परिवर्तन हो जाएगा तथा मानव जीवन मोबाइल के इर्द-गिर्द घूमता रहेगा। आज स्थिति ऐसी हो गई है कि व्यक्ति मोबाइल के बिना स्वयं को अपाहिज समझने लगा है। मोबाइल फोन के कारण मानव जीवन सहज और सुखमय हो गया है। यह आज के मानव की अनिवार्य आवश्यकता बन चुका है। कहा जा सकता है की एक छोटा-सा मोबाइल जो व्यक्ति के शर्ट के पॉकेट में आ जाता है, ने मानव जीवन में इतना अधिक क्रांतिकारी परिवर्तन ला दिया है, जितना किसी अन्य आविष्कार ने नहीं किया। इस मोबाइल ने दुनिया के सबसे अमीर व्यक्ति से लेकर सबसे गरीब व्यक्ति के जीवन प्रभावित किया है। मोबाइल ने साधारण लोगों की जीवन शैली में किस सीमा तक प्रवेश कर लिया है, इसका अनुमान हम व्यक्ति के दैनिक जीवन को देखकर लगा सकते हैं।

निम्नलिखित में से कौन-से विकल्प में गद्यांश का भाव नहीं है?

(1) मानव जीवन मोबाइल के इर्द-गिर्द घूमता है।

(2) मोबाइल ने मनुष्य के जीवन को सहज और सुखमय बना दिया है।

(3) मोबाइल के बिना मनुष्य स्वयं को अपाहिज समझता है।

(4) मोबाइल से अधिक परिवर्तन टेलीविजन ने मानव जीवन में किया है। ✔

Q.195

निम्नलिखित गद्यांश के आधार पर प्रश्नों के उत्तर दें - जब मोबाइल का आविष्कार हुआ था, तब किसी भी व्यक्ति ने कल्पना भी नहीं की होगी कि मानव सभ्यता में इतना अधिक परिवर्तन हो जाएगा तथा मानव जीवन मोबाइल के इर्द-गिर्द घूमता रहेगा। आज स्थिति ऐसी हो गई है कि व्यक्ति मोबाइल के बिना स्वयं को अपाहिज समझने लगा है। मोबाइल फोन के कारण मानव जीवन सहज और सुखमय हो गया है। यह आज के मानव की अनिवार्य आवश्यकता बन चुका है। कहा जा सकता है की एक छोटा-सा मोबाइल जो व्यक्ति के शर्ट के पॉकेट में आ जाता है, ने मानव जीवन में इतना अधिक क्रांतिकारी परिवर्तन ला दिया है, जितना किसी अन्य आविष्कार ने नहीं किया। इस मोबाइल ने दुनिया के सबसे अमीर व्यक्ति से लेकर सबसे गरीब व्यक्ति के जीवन प्रभावित किया है। मोबाइल ने साधारण लोगों की जीवन शैली में किस सीमा तक प्रवेश कर लिया है, इसका अनुमान हम व्यक्ति के दैनिक जीवन को देखकर लगा सकते हैं।

गद्यांश का सारांश चुनें -

(1) दैनिक जीवन में मोबाइल का प्रयोग अधिक नहीं है।

(2) मानव जीवन मोबाइल के इर्द-गिर्द घूमता है। ✔

(3) वर्तमान समय में गरीब मोबाइल का प्रयोग नहीं कर सकते।

(4) अन्य आविष्कारों ने मानव जीवन में क्रांतिकारी परिवर्तन किए हैं।

Q.196

दिए गए गद्यांश को पढ़कर नीचे लिखे प्रश्नों के उत्तर दीजिए ।
राष्ट्र निर्माण की प्रक्रिया में युवाओं की भूमिका अत्यंत महत्त्वपूर्ण मानी जाती है, क्योंकि युवा वर्ग ऊर्जा, उत्साह, सृजनात्मकता और सकारात्मक परिवर्तन की भावना से परिपूर्ण होता है। उच्च शिक्षा, वैज्ञानिक सोच और तकनीकी दक्षता के माध्यम से युवा न केवल अपनी व्यक्तिगत उन्नति करते हैं, बल्कि समाज को भी प्रगतिशील दिशा प्रदान करते हैं। लोकतांत्रिक मूल्यों की रक्षा, सामाजिक कुरीतियों का उन्मूलन, पर्यावरण संरक्षण और आर्थिक विकास जैसे क्षेत्रों में युवाओं की सक्रिय भागीदारी राष्ट्र को सशक्त बनाती है। आज के समय में डिजिटल नवाचार, स्टार्ट-अप संस्कृति और सामाजिक अभियानों में युवाओं की बढ़ती उपस्थिति उनके नेतृत्व कौशल और जिम्मेदारी के प्रति सजगता को दर्शाती है। यदि युवा अपने कौशल और नैतिक मूल्यों का समुचित उपयोग करें, तो वे राष्ट्र को न केवल वर्तमान चुनौतियों से उबार सकते हैं, बल्कि भविष्य को भी अधिक स्थिर और समृद्ध बना सकते हैं। इस प्रकार, राष्ट्र-निर्माण की सतत प्रक्रिया में युवा एक मजबूत आधार-स्तंभ के रूप में उभरते हैं।

उपर्युक्त गद्यांश का उचित शीर्षक क्या है?

(1) राष्ट्र निर्माण में युवाओं का नियमन
(2) राष्ट्र निर्माण में युवाओं की उदासीनता
(3) **राष्ट्र निर्माण में युवाओं की भूमिका ✓**
(4) राष्ट्र निर्माण में युवाओं की निष्क्रियता

Q.197

दिए गए गद्यांश को पढ़कर नीचे लिखे प्रश्नों के उत्तर दीजिए ।
राष्ट्र निर्माण की प्रक्रिया में युवाओं की भूमिका अत्यंत महत्त्वपूर्ण मानी जाती है, क्योंकि युवा वर्ग ऊर्जा, उत्साह, सृजनात्मकता और सकारात्मक परिवर्तन की भावना से परिपूर्ण होता है। उच्च शिक्षा, वैज्ञानिक सोच और तकनीकी दक्षता के माध्यम से युवा न केवल अपनी व्यक्तिगत उन्नति करते हैं, बल्कि समाज को भी प्रगतिशील दिशा प्रदान करते हैं। लोकतांत्रिक मूल्यों की रक्षा, सामाजिक कुरीतियों का उन्मूलन, पर्यावरण संरक्षण और आर्थिक विकास जैसे क्षेत्रों में युवाओं की सक्रिय भागीदारी राष्ट्र को सशक्त बनाती है। आज के समय में डिजिटल नवाचार, स्टार्ट-अप संस्कृति और सामाजिक अभियानों में युवाओं की बढ़ती उपस्थिति उनके नेतृत्व कौशल और जिम्मेदारी के प्रति सजगता को दर्शाती है। यदि युवा अपने कौशल और नैतिक मूल्यों का समुचित उपयोग करें, तो वे राष्ट्र को न केवल वर्तमान चुनौतियों से उबार सकते हैं, बल्कि भविष्य को भी अधिक स्थिर और समृद्ध बना सकते हैं। इस प्रकार, राष्ट्र-निर्माण की सतत प्रक्रिया में युवा एक मजबूत आधार-स्तंभ के रूप में उभरते हैं।

किस क्षेत्र में युवाओं की सक्रिय भागीदारी राष्ट्र को सशक्त बनाने में बाधक है?

(1) पर्यावरण संरक्षण और आर्थिक विकास
(2) **सांप्रदायिक आंदोलन ✓**
(3) लोकतांत्रिक मूल्यों की रक्षा
(4) सामाजिक कुरीतियों का उन्मूलन

Q.198

दिए गए गद्यांश को पढ़कर नीचे लिखे प्रश्नों के उत्तर दीजिए ।
राष्ट्र निर्माण की प्रक्रिया में युवाओं की भूमिका अत्यंत महत्त्वपूर्ण मानी जाती है, क्योंकि युवा वर्ग ऊर्जा, उत्साह, सृजनात्मकता और सकारात्मक परिवर्तन की भावना से परिपूर्ण होता है। उच्च शिक्षा, वैज्ञानिक सोच और तकनीकी दक्षता के माध्यम से युवा न केवल अपनी व्यक्तिगत उन्नति करते हैं, बल्कि समाज को भी प्रगतिशील दिशा प्रदान करते हैं। लोकतांत्रिक मूल्यों की रक्षा, सामाजिक कुरीतियों का उन्मूलन, पर्यावरण संरक्षण और आर्थिक विकास जैसे क्षेत्रों में युवाओं की सक्रिय भागीदारी राष्ट्र को सशक्त बनाती है। आज के समय में डिजिटल नवाचार, स्टार्ट-अप संस्कृति और सामाजिक अभियानों में युवाओं की बढ़ती उपस्थिति उनके नेतृत्व कौशल और जिम्मेदारी के प्रति सजगता को दर्शाती है। यदि युवा अपने कौशल और नैतिक मूल्यों का समुचित उपयोग करें, तो वे राष्ट्र को न केवल वर्तमान चुनौतियों से उबार सकते हैं, बल्कि भविष्य को भी अधिक स्थिर और समृद्ध बना सकते हैं। इस प्रकार, राष्ट्र-निर्माण की सतत प्रक्रिया में युवा एक मजबूत आधार-स्तंभ के रूप में उभरते हैं।

निम्नलिखित में से कौन-सा कथन उपर्युक्त गद्यांश के अनुसार सही नहीं है?

(1) युवा वर्ग अपने कौशल और नैतिक मूल्यों का समुचित उपयोग करके राष्ट्र को वर्तमान चुनौतियों से उबार सकता है।
(2) युवा वर्ग उच्च शिक्षा, वैज्ञानिक सोच और तकनीकी दक्षता के माध्यम से समाज को प्रगतिशील दिशा प्रदान करते हैं।
(3) युवा वर्ग ऊर्जा, उत्साह, सृजनात्मकता और सकारात्मक परिवर्तन की भावना से परिपूर्ण होता है।
(4) वर्तमान में डिजिटल नवाचार, स्टार्ट-अप, संस्कृति और सामाजिक अभियानों में युवाओं की उपस्थिति कम हो रही है। ✔

Q.199

दिए गए गद्यांश को पढ़कर नीचे लिखे प्रश्नों के उत्तर दीजिए ।
राष्ट्र निर्माण की प्रक्रिया में युवाओं की भूमिका अत्यंत महत्त्वपूर्ण मानी जाती है, क्योंकि युवा वर्ग ऊर्जा, उत्साह, सृजनात्मकता और सकारात्मक परिवर्तन की भावना से परिपूर्ण होता है। उच्च शिक्षा, वैज्ञानिक सोच और तकनीकी दक्षता के माध्यम से युवा न केवल अपनी व्यक्तिगत उन्नति करते हैं, बल्कि समाज को भी प्रगतिशील दिशा प्रदान करते हैं। लोकतांत्रिक मूल्यों की रक्षा, सामाजिक कुरीतियों का उन्मूलन, पर्यावरण संरक्षण और आर्थिक विकास जैसे क्षेत्रों में युवाओं की सक्रिय भागीदारी राष्ट्र को सशक्त बनाती है। आज के समय में डिजिटल नवाचार, स्टार्ट-अप संस्कृति और सामाजिक अभियानों में युवाओं की बढ़ती उपस्थिति उनके नेतृत्व कौशल और जिम्मेदारी के प्रति सजगता को दर्शाती है। यदि युवा अपने कौशल और नैतिक मूल्यों का समुचित उपयोग करें, तो वे राष्ट्र को न केवल वर्तमान चुनौतियों से उबार सकते हैं, बल्कि भविष्य को भी अधिक स्थिर और समृद्ध बना सकते हैं। इस प्रकार, राष्ट्र-निर्माण की सतत प्रक्रिया में युवा एक मजबूत आधार-स्तंभ के रूप में उभरते हैं।

'स्टार्ट-अप','डिजिटल' किस प्रकार के शब्द हैं?

(1) देशज
(2) तद्भव
(3) तत्सम
(4) विदेशज ✔

Q.200

दिए गए गद्यांश को पढ़कर नीचे लिखे प्रश्नों के उत्तर दीजिए ।
राष्ट्र निर्माण की प्रक्रिया में युवाओं की भूमिका अत्यंत महत्त्वपूर्ण मानी जाती है, क्योंकि युवा वर्ग ऊर्जा, उत्साह, सृजनात्मकता और सकारात्मक परिवर्तन की भावना से परिपूर्ण होता है। उच्च शिक्षा, वैज्ञानिक सोच और तकनीकी दक्षता के माध्यम से युवा न केवल अपनी व्यक्तिगत उन्नति करते हैं, बल्कि समाज को भी प्रगतिशील दिशा प्रदान करते हैं। लोकतांत्रिक मूल्यों की रक्षा, सामाजिक कुरीतियों का उन्मूलन, पर्यावरण संरक्षण और आर्थिक विकास जैसे क्षेत्रों में युवाओं की सक्रिय भागीदारी राष्ट्र को सशक्त बनाती है। आज के समय में डिजिटल नवाचार, स्टार्ट-अप संस्कृति और सामाजिक अभियानों में युवाओं की बढ़ती उपस्थिति उनके नेतृत्व कौशल और जिम्मेदारी के प्रति सजगता को दर्शाती है। यदि युवा अपने कौशल और नैतिक मूल्यों का समुचित उपयोग करें, तो वे राष्ट्र को न केवल वर्तमान चुनौतियों से उबार सकते हैं, बल्कि भविष्य को भी अधिक स्थिर और समृद्ध बना सकते हैं। इस प्रकार, राष्ट्र-निर्माण की सतत प्रक्रिया में युवा एक मजबूत आधार-स्तंभ के रूप में उभरते हैं।

'उन्मूलन' का विलोम शब्द क्या है?

(1) आपण

(2) आगर

(3) कृपण

(4) **रोपण " ✔**

Answer Key / उत्तर कुंजी

1 4	**2** 3	**3** 3	**4** 1	**5** 4	**6** 1	**7** 4	**8** 2	**9** 2	**10** 3	**11** 1	**12** 3	**13** 3	**14** 1	**15** 3
16 1	**17** 1	**18** 1	**19** 3	**20** 3	**21** 4	**22** 3	**23** 3	**24** 4	**25** 3	**26** 3	**27** 3	**28** 3	**29** 2	**30** 1
31 4	**32** 4	**33** 2	**34** 1	**35** 3	**36** 1	**37** 3	**38** 3	**39** 1	**40** 4	**41** 2	**42** 4	**43** 2	**44** 1	**45** 2
46 3	**47** 2	**48** 2	**49** 3	**50** 2	**51** 1	**52** 4	**53** 4	**54** 1	**55** 2	**56** 4	**57** 3	**58** 3	**59** 4	**60** 4
61 2	**62** 2	**63** 2	**64** 2	**65** 3	**66** 2	**67** 3	**68** 1	**69** 2	**70** 3	**71** 3	**72** 4	**73** 1	**74** 1	**75** 4
76 4	**77** 3	**78** 4	**79** 4	**80** 4	**81** 4	**82** 4	**83** 1	**84** 3	**85** 3	**86** 2	**87** 2	**88** 4	**89** 4	**90** 1
91 2	**92** 3	**93** 1	**94** 3	**95** 1	**96** 1	**97** 3	**98** 2	**99** 4	**100** 3	**101** 3	**102** 1	**103** 1	**104** 1	**105** 3
106 2	**107** 3	**108** 3	**109** 2	**110** 3	**111** 4	**112** 1	**113** 4	**114** 1	**115** 2	**116** 2	**117** 1	**118** 4	**119** 3	**120** 4
121 3	**122** 4	**123** 2	**124** 1	**125** 4	**126** 3	**127** 4	**128** 1	**129** 4	**130** 3	**131** 1	**132** 1	**133** 3	**134** 3	**135** 1
136 1	**137** 1	**138** 2	**139** 1	**140** 4	**141** 4	**142** 2	**143** 3	**144** 3	**145** 3	**146** 1	**147** 4	**148** 4	**149** 2	**150** 3
151 1	**152** 4	**153** 4	**154** 2	**155** 1	**156** 2	**157** 2	**158** 4	**159** 2	**160** 4	**161** 1	**162** 1	**163** 1	**164** 2	**165** 3
166 3	**167** 1	**168** 4	**169** 3	**170** 3	**171** 2	**172** 2	**173** 1	**174** 3	**175** 2	**176** 4	**177** 2	**178** 2	**179** 3	**180** 1
181 3	**182** 1	**183** 4	**184** 3	**185** 1	**186** 1	**187** 1	**188** 3	**189** 2	**190** 2	**191** 3	**192** 2	**193** 1	**194** 4	**195** 2
196 3	**197** 2	**198** 4	**199** 4	**200** 4										

GOVT. OF NCT OF DELHI
Delhi Subordinate Services Selection Board
FC-18, Institutional Area, Karkardooma, Delhi – 110092.
www.dsssb.delhigovt.nic.in

Participant ID	[redacted]
Participant Name	[redacted]
Test Center Name	Aadarsh Pariksha Kendra CENTER B - Gate No 2 - Noida Sector 64
Test Date	21/02/2026
Test Time	5:00 PM - 7:00 PM
Subject	Bailiff

Section : **General intelligence and Reasoning Ability**

Q.1 **In a certain code language, 'JUTE' is coded as '1634' and 'CUTE' is coded as '6412'. What is the code for 'C' in the given code language?**9972

Ans
✗ 1. 6
✗ 2. 1
✗ 3. 4
✓ 4. 2

Question ID : **441009795956**
Option 1 ID : **4410093137826**
Option 2 ID : **4410093137824**
Option 3 ID : **4410093137825**
Option 4 ID : **4410093137823**

Q.2 **Refer to the following letter series and answer the question.**

(Left) U H A X K J M I S L X O N W A E O E K U Z G (Right)

How many such consonants are there, each of which is immediately preceded by a consonant and also immediately followed by a consonant?15413

Ans
✗ 1. 4
✗ 2. 2
✓ 3. 3
✗ 4. 5

Question ID : **441009769473**
Option 1 ID : **4410093031886**
Option 2 ID : **4410093031887**
Option 3 ID : **4410093031885**
Option 4 ID : **4410093031888**

QuickSarkari.com | WhatsApp Channel | Telegram: t.me/quick_sarkari

Q.3 Refer to the following letter and symbol series and answer the question that follows. Counting to be done from left to right only.

(Left) Z Q @ $ $ € R @ C € M @ T Q @ L $ E € £ N F (Right)

How many such symbols are there each of which is immediately preceded by a letter and also immediately followed by a letter?
4687

Ans
✗ 1. 7
✗ 2. 6
✓ 3. 5
✗ 4. 4

Question ID : **441009790791**
Option 1 ID : **4410093117166**
Option 2 ID : **4410093117164**
Option 3 ID : **4410093117163**
Option 4 ID : **4410093117165**

Q.4 Refer to the following series and answer the question.

(Left) A E I O U M N H G B V G O I A E U J H G A W E I O U H G F D (Right)

If all the vowels are dropped from the series, which letter will be third from the left?15779

Ans
✓ 1. H
✗ 2. M
✗ 3. N
✗ 4. G

Question ID : **441009769839**
Option 1 ID : **4410093033352**
Option 2 ID : **4410093033350**
Option 3 ID : **4410093033349**
Option 4 ID : **4410093033351**

Q.5 Each letter in the word VARLETS is changed to the letter immediately following it in the English alphabetical order and then all the letters thus formed are arranged in alphabetical order. Which of the following letters will be fourth from the right in the new group of letters thus formed? 9043

Ans
✗ 1. T
✗ 2. M
✗ 3. U
✓ 4. S

Question ID : **441009782905**
Option 1 ID : **4410093085625**
Option 2 ID : **4410093085624**
Option 3 ID : **4410093085626**
Option 4 ID : **4410093085623**

QuickSarkari.com | WhatsApp Channel | Telegram: t.me/quick_sarkari

Q.6 V, W, X, Y, Z are sitting around a circular table, facing the center. V sits to the immediate left of Y. Z sits second to the right of X. Who is sitting second to the left of V?

Ans
✔ 1. W
✘ 2. Y
✘ 3. Z
✘ 4. X

Question ID : **4410091621945**
Option 1 ID : **4410096406564**
Option 2 ID : **4410096406567**
Option 3 ID : **4410096406566**
Option 4 ID : **4410096406565**

Q.7 Six boxes S, T, U, V, W, and X are kept one over the other but not necessarily in the same order. U is kept third from the bottom. Only two boxes are kept between U and V. Only one box is kept between V and S. W is kept immediately above X. How many boxes are kept exactly between X and S?

Ans
✘ 1. One
✘ 2. None
✘ 3. Three
✔ 4. Two

Question ID : **4410091609175**
Option 1 ID : **4410096355617**
Option 2 ID : **4410096355616**
Option 3 ID : **4410096355619**
Option 4 ID : **4410096355618**

Q.8 Eight people Abhishek, Bina, Charvi, Devansh, Ekta, Firoj, Gita and Harsh are sitting in a row, facing north. Only two people sit to the right of Ekta. Only two people sit to the left of Bina. Abhishek sits immediate right of Devansh and Devansh is an immediate neighbour of Bina. Harsh sits immediate left of Gita and Gita sits at any extreme ends. Charvi does not sit at any extreme ends. Who sits at the extreme left end of the line?

Ans
✘ 1. Charvi
✔ 2. Firoj
✘ 3. Abhishek
✘ 4. Harsh

Question ID : **4410091609159**
Option 1 ID : **4410096355554**
Option 2 ID : **4410096355552**
Option 3 ID : **4410096355553**
Option 4 ID : **4410096355555**

Q.9 In a certain code language, 'he is good boy' is coded as 'ab yz mn bc' and 'good to see you' is coded as 'tg qr cd mn'. How is 'good' coded in the given language?

(All codes are two-letter codes only.)

Ans
✗ 1. qr
✓ 2. mn
✗ 3. tg
✗ 4. ab

Question ID : **4410091609275**
Option 1 ID : **4410096356027**
Option 2 ID : **4410096356025**
Option 3 ID : **4410096356026**
Option 4 ID : **4410096356024**

Q.10 Six boxes M, N, O, S, T and U are kept one over the other but not necessarily in the same order. Only U is kept between O and M. M is kept immediately above T. S is kept immediately below N and N is kept on the top. Which box is third from the top?

Ans
✗ 1. U
✗ 2. S
✓ 3. O
✗ 4. M

Question ID : **4410091609170**
Option 1 ID : **4410096355598**
Option 2 ID : **4410096355597**
Option 3 ID : **4410096355596**
Option 4 ID : **4410096355599**

Q.11 Refer to the following number series and answer the question that follows. (All numbers are single-digit numbers only.) (Counting to be done from left to right only.)

(Left) 7 5 9 3 1 9 4 2 7 6 3 9 1 8 5 2 4 7 3 9 7 1 4 5 4 2 7 (Right)

How many such even digits are there each of which is immediately preceded by an odd digit and also immediately followed by another odd digit?

Ans
✓ 1. Three
✗ 2. Two
✗ 3. Four
✗ 4. One

Question ID : **441009795107**
Option 1 ID : **4410093134429**
Option 2 ID : **4410093134428**
Option 3 ID : **4410093134430**
Option 4 ID : **4410093134427**

QuickSarkari

Q.12 P is the daughter of Q. Q is married to R. R is the brother of S. S is the parent of T. How is Q related to T?

Ans
✗ 1. Grandparent
✗ 2. Sibling
✓ 3. Aunt
✗ 4. Child

Question ID : **4410091626130**
Option 1 ID : **4410096422921**
Option 2 ID : **4410096422922**
Option 3 ID : **4410096422924**
Option 4 ID : **4410096422923**

Q.13 Refer to the following letter series and answer the question.

(Left) A G O G J H L U D V X E G F U P O W B O O Y (Right)

How many such consonants are there, each of which is immediately preceded by a vowel and also immediately followed by a vowel?15416

Ans
✗ 1. 3
✗ 2. 4
✓ 3. 2
✗ 4. 1

Question ID : **441009769476**
Option 1 ID : **4410093031898**
Option 2 ID : **4410093031900**
Option 3 ID : **4410093031897**
Option 4 ID : **4410093031899**

Q.14 D is married to E. F is the son of D. G is the daughter of E. H is the sister of F. How is H related to D?

Ans
✓ 1. Daughter
✗ 2. Spouse
✗ 3. Son
✗ 4. Sibling

Question ID : **4410091626164**
Option 1 ID : **4410096423058**
Option 2 ID : **4410096423060**
Option 3 ID : **4410096423057**
Option 4 ID : **4410096423059**

QuickSarkari.com | WhatsApp Channel | Telegram: t.me/quick_sarkari

Q.15 M, N, O, P, Q, and R live on six different floors of the same building. The lowermost floor in the building is numbered 1, the floor above it, number 2 and so on till the topmost floor is numbered 6. Only two people live between N and R. Q lives immediately below M. O lives on the topmost floor. Only one person lives between O and N. On which floor does Q live?

Ans
✗ 1. Floor number 3
✗ 2. Floor number 5
✓ 3. Floor number 2
✗ 4. Floor number 4

Question ID : **4410091629201**
Option 1 ID : **4410096434904**
Option 2 ID : **4410096434903**
Option 3 ID : **4410096434902**
Option 4 ID : **4410096434905**

Q.16 Refer to the following number series and answer the question that follows. All numbers are single-digit numbers only. Counting to be done from left to right only.

(Left) 9 4 1 3 7 8 2 5 6 9 4 1 3 8 7 2 5 9 6 4 3 1 8 7 5 2 6 (Right)

How many such odd digits are there, each of which is immediately followed by an even digit and also immediately preceded by an odd digit?

Ans
✓ 1. More than three
✗ 2. Three
✗ 3. Two
✗ 4. One

Question ID : **441009795108**
Option 1 ID : **4410093134431**
Option 2 ID : **4410093134434**
Option 3 ID : **4410093134433**
Option 4 ID : **4410093134432**

Q.17 Seven boxes X, Y, Z, A, B, C, and D are kept one over the other but not necessarily in the same order. B is kept second from the bottom. D is not an immediate neighbor of B. Only two boxes are kept between B and X. Y is kept immediately below X. Only three boxes are kept between D and C. Z is kept on one of the positions above A. Which box is kept fourth from the top?

Ans
✓ 1. Y
✗ 2. D
✗ 3. C
✗ 4. X

Question ID : **4410091623173**
Option 1 ID : **4410096411411**
Option 2 ID : **4410096411409**
Option 3 ID : **4410096411410**
Option 4 ID : **4410096411408**

Q.18 Refer to the following letter series and answer the question that follows. Counting to be done from left to right only.

(Left) N M C L Y K O F W Q J A T P S G K S K D (Right)

How many consonants are there in the series, each of which is immediately preceded by a vowel, and immediately followed by a consonant?3358

Ans
✔ 1. Two
✘ 2. One
✘ 3. Four
✘ 4. Three

Question ID : **441009777355**
Option 1 ID : **4410093063423**
Option 2 ID : **4410093063426**
Option 3 ID : **4410093063424**
Option 4 ID : **4410093063425**

Q.19 Five people, L, M, N, O, and P are sitting in a row facing north. Only O sits to the immediate right of N. M is sitting at the extreme left end. Only two people sit between L and O. Who sits third from the left end?

Ans
✘ 1. L
✘ 2. O
✔ 3. P
✘ 4. N

Question ID : **4410091622984**
Option 1 ID : **4410096410697**
Option 2 ID : **4410096410696**
Option 3 ID : **4410096410699**
Option 4 ID : **4410096410698**

Q.20 Seven people F, G, H, Q, R, S and T are sitting in a straight line facing north. Only three people sit between F and H. Only three people sit to the left of T. Only Q sits to the right of F. R sits at some place to the left of S but at some place to the right of G. How many people sit between G and S?2210

Ans
✘ 1. One
✘ 2. Two
✔ 3. Three
✘ 4. Four

Question ID : **441009788334**
Option 1 ID : **4410093107338**
Option 2 ID : **4410093107337**
Option 3 ID : **4410093107336**
Option 4 ID : **4410093107335**

Section : **General intelligence and Reasoning Ability1**

QuickSarkari.com | WhatsApp Channel | Telegram: t.me/quick_sarkari

Q.1 **Based on the English alphabetical order, three of the following four letter cluster pairs are alike in a certain way and thus form a group. Which is the one that does not belong to that group?**
(Note: The odd man out is not based on the number of consonants/vowels or their position in the letter cluster.)6469

Ans
✗ 1. TQ-PM
✗ 2. RO-NK
✗ 3. NK-JG
✓ 4. UR-PP

Question ID : **441009792529**
Option 1 ID : **4410093124118**
Option 2 ID : **4410093124117**
Option 3 ID : **4410093124116**
Option 4 ID : **4410093124115**

Q.2 **If the water source is placed along X-Y, as shown in the figure, which of the following options will be the water reflection of the given figure?**

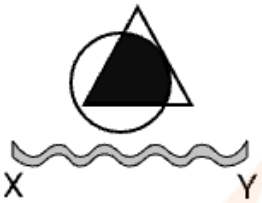

Ans
✗ 1. 
✗ 2. 
✓ 3. 
✗ 4. 

Question ID : **4410091471696**
Option 1 ID : **4410095814671**
Option 2 ID : **4410095814674**
Option 3 ID : **4410095814672**
Option 4 ID : **4410095814673**

QuickSarkari.com | WhatsApp Channel | Telegram: t.me/quick_sarkari

Q.3 What should come in place of the question mark (?) in the given series based on the English alphabetical order?

JVD KVE LVF MVG ?

Ans
1. NVI
2. OVI
3. NVH
4. OVH

Question ID : **4410091492164**
Option 1 ID : **4410095894370**
Option 2 ID : **4410095894372**
Option 3 ID : **4410095894369**
Option 4 ID : **4410095894371**

Q.4 What should come in place of ? in the given series based on the English alphabetical order?
CMR FPU ISX LVA ?

Ans
1. NYD
2. OYE
3. NYE
4. OYD

Question ID : **4410091492197**
Option 1 ID : **4410095894510**
Option 2 ID : **4410095894512**
Option 3 ID : **4410095894509**
Option 4 ID : **4410095894511**

Q.5 What will come in the place of the question mark (?) in the following equation, if '+' and '–' are interchanged and '×' and '÷' are interchanged?

19 ÷ 56 × 14 + 36 – 14 = ?

Ans
1. 53
2. 50
3. 54
4. 51

Question ID : **441009553863**
Option 1 ID : **4410092170767**
Option 2 ID : **4410092170768**
Option 3 ID : **4410092170766**
Option 4 ID : **4410092170769**

QuickSarkari.com | WhatsApp Channel | Telegram: t.me/quick_sarkari

Q.6 3 is related to 45 following a certain logic. Following the same logic, 22 is related to 330. To which of the following is 39 related, following the same logic?

(NOTE: Operations should be performed on the whole numbers, without breaking down the numbers into their constituent digits. E.g. 13 – Operations on 13 such as adding/subtracting/multiplying to 13 can be performed. Breaking down 13 into 1 and 3 and then performing mathematical operations on 1 and 3 is not allowed.)1347

Ans
✗ 1. 855
✗ 2. 555
✓ 3. 585
✗ 4. 565

Question ID : **441009591369**
Option 1 ID : **4410092320590**
Option 2 ID : **4410092320592**
Option 3 ID : **4410092320591**
Option 4 ID : **4410092320589**

Q.7 UKNE is related to RHKB in a certain way based on the English alphabetical order. In the same way, OSIX is related to LPFU. To which of the following is LWAP related, following the same logic?9802

Ans
✗ 1. HUYL
✗ 2. JWZN
✓ 3. ITXM
✗ 4. HVYL

Question ID : **441009795786**
Option 1 ID : **4410093137143**
Option 2 ID : **4410093137144**
Option 3 ID : **4410093137145**
Option 4 ID : **4410093137146**

Q.8 Below are given two sets of numbers. In each set of numbers, a certain mathematical operation on the first number results in the second number. Similarly, certain mathematical operation on the second number results in the third number and so on. Which of the given options follows the same set of operations as in the question?
(NOTE – A two/three-digit number cannot be broken into individual digits for operations e.g. if 37 is followed by 10, the operation cannot be 3+7 as a two-digit number cannot be broken into individual digits)
5 - 7 - 49 - 50 ; 1 - 3 - 9 - 104270

Ans
✗ 1. 3 - 5 - 25 - 30
✗ 2. 13 - 14 - 196 - 198
✓ 3. 8 - 10 - 100 - 101
✗ 4. 7 - 9 - 81 - 91

Question ID : **441009587836**
Option 1 ID : **4410092306471**
Option 2 ID : **4410092306473**
Option 3 ID : **4410092306472**
Option 4 ID : **4410092306470**

Q.9 Based on the English alphabetical order, three of the following four are alike in a certain way and thus form a group. Which is the one that DOES NOT belong to that group?
(Note: The odd man out is not based on the number of consonants/vowels or their position in the letter-cluster.)1063

Ans
✗ 1. MNQ
✓ 2. PSR
✗ 3. VWZ
✗ 4. TUX

Question ID : **441009804486**
Option 1 ID : **4410093172067**
Option 2 ID : **4410093172068**
Option 3 ID : **4410093172070**
Option 4 ID : **4410093172069**

Q.10 25 is related to 150 following a certain logic. Following the same logic, 32 is related to 192. To which of the following is 14 related, following the same logic?

(NOTE: Operations should be performed on the whole numbers, without breaking down the numbers into their constituent digits. E.g. 13 – Operations on 13 such as adding/subtracting/multiplying etc. to 13, can be performed. Breaking down 13 into 1 and 3 and then performing mathematical operations on 1 and 3 is not allowed.)350

Ans
✓ 1. 84
✗ 2. 103
✗ 3. 110
✗ 4. 95

Question ID : **441009590372**
Option 1 ID : **4410092316601**
Option 2 ID : **4410092316603**
Option 3 ID : **4410092316604**
Option 4 ID : **4410092316602**

Quick Sarkari

Q.11 Select the correct mirror image of the given figure when the mirror is placed at PQ as shown below.

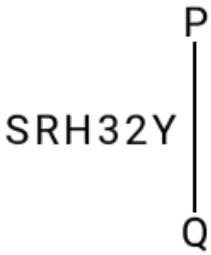

Ans
1. 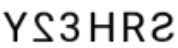
2. 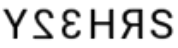
3. 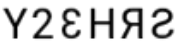
4. 

Question ID : **441009296602**
Option 1 ID : **4410091153526**
Option 2 ID : **4410091153527**
Option 3 ID : **4410091153525**
Option 4 ID : **4410091153524**

Q.12 Based on the English alphabetical order, three of the following four letter-clusters are alike in a certain way and thus form a group. Which letter-cluster DOES NOT belong to that group?
(Note: The odd one out is not based on the number of consonants/vowels or their position in the letter-cluster.)

Ans
1. NOK
2. MNJ
3. JKG
4. PLC

Question ID : **441009788490**
Option 1 ID : **4410093107962**
Option 2 ID : **4410093107959**
Option 3 ID : **4410093107960**
Option 4 ID : **4410093107961**

Quick Sarkari

Q.13 5 is related to 31 following a certain logic. Following the same logic, 8 is related to 70. To which of the following is 12 related, following the same logic?

(NOTE: Operations should be performed on the whole numbers, without breaking down the numbers into their constituent digits. E.g. 13 – Operations on 13 such as adding/subtracting/multiplying to 13 can be performed. Breaking down 13 into 1 and 3 and then performing mathematical operations on 1 and 3 is not allowed.) 755

Ans
✗ 1. 64
✓ 2. 150
✗ 3. 78
✗ 4. 106

Question ID : **441009590777**
Option 1 ID : **4410092318224**
Option 2 ID : **4410092318222**
Option 3 ID : **4410092318223**
Option 4 ID : **4410092318221**

Q.14 If 2 is added to each even digit and 1 is subtracted from each odd digit in the number 714235, how many digits will appear more than once in the new number thus formed?

Ans
✓ 1. 2
✗ 2. 1
✗ 3. 4
✗ 4. 3

Question ID : **4410091469124**
Option 1 ID : **4410095804449**
Option 2 ID : **4410095804448**
Option 3 ID : **4410095804451**
Option 4 ID : **4410095804450**

Q.15 OF 10 is related to QC -1 in a certain way. In the same way, JL 17 is related to LI 6. To which of the given options is KM 5 related, following the same logic? 2383

Ans
✗ 1. HY -7
✗ 2. VJ -5
✓ 3. MJ -6
✗ 4. CF -4

Question ID : **441009776385**
Option 1 ID : **4410093059544**
Option 2 ID : **4410093059545**
Option 3 ID : **4410093059543**
Option 4 ID : **4410093059546**

QuickSarkari.com | WhatsApp Channel | Telegram: t.me/quick_sarkari

Q.16 Select the pair which follows the same pattern as that followed by the two pairs given below. Both pairs follow the same pattern.

JRW : HPU
KBM : IZK4163

Ans
✔ 1. DNS : BLQ
✘ 2. DNS : FPV
✘ 3. HRW : EOT
✘ 4. DNS : CMR

Question ID : **441009790277**
Option 1 ID : **4410093115109**
Option 2 ID : **4410093115107**
Option 3 ID : **4410093115110**
Option 4 ID : **4410093115108**

Q.17 84 is related to 24 following a certain logic. Following the same logic, 96 is related to 28. To which of the following is 105 related, following the same logic?

(NOTE: Operations should be performed on the whole numbers, without breaking down the numbers into its constituent digits. E.g. 13 - Operations on 13 such as adding / subtracting / multiplying etc. to 13 can be performed . Breaking down 13 into 1 and 3 and then performing mathematical operations on 1 and 3 is not allowed.)701

Ans
✘ 1. 38
✘ 2. 35
✔ 3. 31
✘ 4. 40

Question ID : **441009590723**
Option 1 ID : **4410092318007**
Option 2 ID : **4410092318006**
Option 3 ID : **4410092318005**
Option 4 ID : **4410092318008**

Q.18 If 'P' stands for '×' , 'Q' stands for '÷', 'R' stands for '-' and 'S' stands for '+' , what will come in place of the question mark '?' in the following equation?
(72 Q 9) P 2 S 5 P 2 R 7 = ?

Ans
✘ 1. 37
✘ 2. 24
✔ 3. 19
✘ 4. 11

Question ID : **4410091494164**
Option 1 ID : **4410095902276**
Option 2 ID : **4410095902278**
Option 3 ID : **4410095902279**
Option 4 ID : **4410095902277**

Q.19 What will come in the place of '?' in the following equation, if '+' and ' – ' are interchanged and '×' and '÷' are interchanged?
26 - 70 × 7 + 8 ÷ 2 = ?

Ans
✔ 1. 20
✘ 2. 14
✘ 3. 32
✘ 4. 40

Question ID : **4410091494192**
Option 1 ID : **4410095902387**
Option 2 ID : **4410095902386**
Option 3 ID : **4410095902385**
Option 4 ID : **4410095902384**

Q.20 SM 17 is related to PJ 40 in a certain way. In the same way, ET 25 is related to BQ 56. To which of the following is PK 31 related to following the same logic?

Ans
✘ 1. NI 68
✘ 2. MH 62
✘ 3. NI 70
✔ 4. MH 68

Question ID : **4410091494083**
Option 1 ID : **4410095901953**
Option 2 ID : **4410095901955**
Option 3 ID : **4410095901952**
Option 4 ID : **4410095901954**

Section : **General Awareness**

Q.1 The constitutional statement *"The State shall not deny to any person equality before the law or the equal protection of the laws"* is contained in which provision of the Constitution of India?

Ans
✘ 1. Article 12
✔ 2. Article 14
✘ 3. Article 13
✘ 4. Article 15

Question ID : **4410091536782**
Option 1 ID : **4410096070367**
Option 2 ID : **4410096070369**
Option 3 ID : **4410096070368**
Option 4 ID : **4410096070370**

Q.2 **The "Drain of Wealth" theory, which explained the continuous transfer of India's economic surplus to Britain during colonial rule, was propounded by whom?**

Ans
✗ 1. R.C. Desai
✗ 2. V.K.R.V. Rao
✗ 3. William Digby
✓ 4. Dadabhai Naoroji

Question ID : **4410091542272**
Option 1 ID : **4410096092194**
Option 2 ID : **4410096092193**
Option 3 ID : **4410096092192**
Option 4 ID : **4410096092191**

Q.3 **The World Trade Organization (WTO) was established in 1995 as the successor to which of the following organisations?**

Ans
✗ 1. International Monetary Fund
✓ 2. General Agreement on Tariffs and Trade
✗ 3. World Bank Group
✗ 4. United Nations Conference on Trade and Development

Question ID : **4410091542228**
Option 1 ID : **4410096092021**
Option 2 ID : **4410096092020**
Option 3 ID : **4410096092022**
Option 4 ID : **4410096092019**

Q.4 **Within India's southern physiographic divisions, which physical feature is the most dominant in the state of Kerala?**

Ans
✓ 1. Western Ghats and coastal plains
✗ 2. Central plateau
✗ 3. Himalayan mountains
✗ 4. Desert region

Question ID : **4410091550643**
Option 1 ID : **4410096128376**
Option 2 ID : **4410096128377**
Option 3 ID : **4410096128375**
Option 4 ID : **4410096128378**

QuickSarkari

Q.5 **Which Act introduced the principle of indirect elections to the legislative councils and expanded their functions by allowing Budget discussions and questions to the Executive?**

Ans
- ✗ 1. Indian Councils Act, 1909
- ✓ 2. Indian Councils Act, 1892
- ✗ 3. Government of India Act, 1919
- ✗ 4. Government of India Act, 1858

Question ID : **4410091550092**
Option 1 ID : **4410096135470**
Option 2 ID : **4410096135468**
Option 3 ID : **4410096135469**
Option 4 ID : **4410096135467**

Q.6 **Fundamental duties are mentioned in which Part of the Indian Constitution?**

Ans
- ✗ 1. Part III
- ✗ 2. Part IV
- ✓ 3. Part IVA
- ✗ 4. Part IX

Question ID : **4410091536769**
Option 1 ID : **4410096070311**
Option 2 ID : **4410096070312**
Option 3 ID : **4410096070313**
Option 4 ID : **4410096070314**

Q.7 **Which Article of the Constitution of India abolishes untouchability and declares its practice in any form as an offence?**

Ans
- ✗ 1. Article 15
- ✓ 2. Article 17
- ✗ 3. Article 16
- ✗ 4. Article 18

Question ID : **4410091536791**
Option 1 ID : **4410096070411**
Option 2 ID : **4410096070413**
Option 3 ID : **4410096070412**
Option 4 ID : **4410096070414**

Q.8 **Which of the following is essential to study the market equilibrium?**

Ans
- ✗ 1. Only firms' behaviour
- ✓ 2. Both consumer and firms' behaviour
- ✗ 3. Neither consumer nor firms' behaviour
- ✗ 4. Only consumer behaviour

Question ID : **441009627356**
Option 1 ID : **4410092463577**
Option 2 ID : **4410092463578**
Option 3 ID : **4410092463579**
Option 4 ID : **4410092463576**

QuickSarkari.com | WhatsApp Channel | Telegram: t.me/quick_sarkari

Q.9 **According to the India Meteorological Department (IMD), El Niño events in the equatorial Pacific Ocean are most commonly associated with which impact on the Indian Summer Monsoon rainfall?**

Ans
- ✗ 1. Excess monsoon rainfall affecting nearly all regions of India
- ✗ 2. Uniform increase in winter rainfall across most parts of India
- ✓ 3. Weakened monsoon conditions causing below-normal rainfall in India
- ✗ 4. No measurable impact on seasonal monsoon rainfall patterns

Question ID : **4410091550142**
Option 1 ID : **4410096128990**
Option 2 ID : **4410096128987**
Option 3 ID : **4410096128989**
Option 4 ID : **4410096128988**

Q.10 **Who discovered the sea route to India by reaching Calicut in 1498?**

Ans
- ✗ 1. Alfonso de Albuquerque
- ✓ 2. Vasco da Gama
- ✗ 3. Roberto Clive
- ✗ 4. Francis Drake

Question ID : **4410091549999**
Option 1 ID : **4410096136159**
Option 2 ID : **4410096136160**
Option 3 ID : **4410096136162**
Option 4 ID : **4410096136161**

Q.11 **The Directive Principles of State Policy (DPSPs) are contained in which range of Articles of the Constitution of India?**

Ans
- ✓ 1. Articles 36–51
- ✗ 2. Articles 243–243O
- ✗ 3. Articles 52–75
- ✗ 4. Articles 12–35

Question ID : **4410091536756**
Option 1 ID : **4410096070244**
Option 2 ID : **4410096070246**
Option 3 ID : **4410096070245**
Option 4 ID : **4410096070243**

QuickSarkari.com | WhatsApp Channel | Telegram: t.me/quick_sarkari

Q.12 The Bhil revolts of the eighteenth and nineteenth centuries were primarily concentrated in which region of India?

Ans
✗ 1. The eastern hill zones of Odisha and Jharkhand
✗ 2. The southern tribal belts of Karnataka and Kerala
✗ 3. The north-eastern highlands of Assam and Meghalaya
✓ 4. The western tribal regions of Rajasthan and adjoining areas

Question ID : **4410091550023**
Option 1 ID : **4410096135914**
Option 2 ID : **4410096135912**
Option 3 ID : **4410096135911**
Option 4 ID : **4410096135913**

Q.13 The Great Indian Plains are predominantly formed by the alluvial deposits of which river system?

Ans
✗ 1. The Mahanadi, the Subarnarekha, and the Baitarani rivers
✗ 2. The Narmada, the Tapti, and the Luni rivers
✗ 3. The Godavari, the Krishna, and the Kaveri rivers
✓ 4. The Indus, the Ganga, and the Brahmaputra rivers

Question ID : **4410091550692**
Option 1 ID : **4410096127570**
Option 2 ID : **4410096127568**
Option 3 ID : **4410096127569**
Option 4 ID : **4410096127567**

Q.14 Which nationalist leader launched the Home Rule Movement in India jointly with Annie Besant?

Ans
✓ 1. Bal Gangadhar Tilak
✗ 2. R.C. Dutt
✗ 3. Bipin Chandra Pal
✗ 4. Rabindranath Tagore

Question ID : **4410091550058**
Option 1 ID : **4410096135637**
Option 2 ID : **4410096135635**
Option 3 ID : **4410096135638**
Option 4 ID : **4410096135636**

Q.15 Which of the following posts was created by the Government of India Act, 1919?

Ans
✗ 1. Secretary of State for India
✓ 2. High Commissioner for India in the United Kingdom
✗ 3. Governor-General of India
✗ 4. Viceroy of India

Question ID : **4410091536751**
Option 1 ID : **4410096070221**
Option 2 ID : **4410096070220**
Option 3 ID : **4410096070219**
Option 4 ID : **4410096070222**

Q.16 The Konkan Coast of India is located between which of the following regions?

Ans
✗ 1. Karnataka and Kerala
✗ 2. Gujarat and Kerala
✗ 3. Goa and Karnataka
✓ 4. Maharashtra and Goa

Question ID : **4410091550653**
Option 1 ID : **4410096128274**
Option 2 ID : **4410096128271**
Option 3 ID : **4410096128273**
Option 4 ID : **4410096128272**

Q.17 In which year was the Reserve Bank of India, the central bank of India, established?

Ans
✗ 1. 1947
✗ 2. 1951
✓ 3. 1935
✗ 4. 1920

Question ID : **4410091542281**
Option 1 ID : **4410096092229**
Option 2 ID : **4410096092230**
Option 3 ID : **4410096092228**
Option 4 ID : **4410096092227**

Q.18 Which organisation, functioning under the Ministry of Home Affairs, Government of India, is responsible for conducting the Census of India?

Ans
✗ 1. National Sample Survey Office of India
✗ 2. Ministry of Statistics and Programme Implementation
✓ 3. Office of the Registrar General and Census Commissioner
✗ 4. NITI Aayog's Data and Policy Division

Question ID : **4410091550699**
Option 1 ID : **4410096127473**
Option 2 ID : **4410096127472**
Option 3 ID : **4410096127471**
Option 4 ID : **4410096127474**

Q.19 Which of the following Acts under British India abolished the system of provincial dyarchy and suggested the establishment of dyarchy at the centre?

Ans
✗ 1. Government of India Act, 1919
✗ 2. Indian Councils Act, 1909
✗ 3. Indian Councils Act, 1892
✓ 4. Government of India Act, 1935

Question ID : **441009205364**
Option 1 ID : **441009807678**
Option 2 ID : **441009807679**
Option 3 ID : **441009807680**
Option 4 ID : **441009807677**

Q.20 The Liquidity Adjustment Facility (LAF), introduced in April 1999 to modernise short-term liquidity management in India, was introduced by which institution?

Ans
✗ 1. National Bank for Agriculture and Rural Development
✗ 2. Industrial Development Bank of India
✗ 3. Securities and Exchange Board of India
✓ 4. Reserve Bank of India

Question ID : **441009510711**
Option 1 ID : **4410091998004**
Option 2 ID : **4410091998005**
Option 3 ID : **4410091998003**
Option 4 ID : **4410091998002**

Section : **General Awareness1**

Q.1 Alongside the Jammu and Kashmir Reorganisation (Amendment) Bill, 2025, which other type of Bill was introduced in the Lok Sabha on August 20, 2025?

Ans
✗ 1. One Hundred and Twelfth Amendment, Bill, 2025
✓ 2. One Hundred and Thirtieth Amendment, Bill, 2025
✗ 3. One Hundred and Eleventh Amendment, Bill, 2025
✗ 4. One Hundred and Tenth Amendment, Bill, 2025

Question ID : **4410091564729**
Option 1 ID : **4410096180488**
Option 2 ID : **4410096180487**
Option 3 ID : **4410096180489**
Option 4 ID : **4410096180490**

Q.2 Gulabo Sapera, a famous Rajasthani folk dancer, was given Padam Shri in which of the following years?

Ans
✗ 1. 2013
✓ 2. 2016
✗ 3. 2015
✗ 4. 2002

Question ID : **441009607825**
Option 1 ID : **4410092386418**
Option 2 ID : **4410092386419**
Option 3 ID : **4410092386417**
Option 4 ID : **4410092386420**

Quick Sarkari

Q.3 **The International Conference on Green Hydrogen (ICGH 2025) held at Bharat Mandapam, New Delhi, was organized by which ministry?**

Ans
✗ 1. Ministry of Housing and Urban Affairs
✓ 2. Ministry of New and Renewable Energy
✗ 3. Ministry of External Affairs
✗ 4. Ministry of Finance

Question ID : **4410091534960**
Option 1 ID : **4410096063082**
Option 2 ID : **4410096063080**
Option 3 ID : **4410096063081**
Option 4 ID : **4410096063079**

Q.4 **Which of the following was celebrated by the Indian Army's Western Command on 15 September 2025?**

Ans
✗ 1. 33rd Raising Day
✓ 2. 79th Raising Day
✗ 3. 40th Raising Day
✗ 4. 58th Raising Day

Question ID : **4410091312972**
Option 1 ID : **4410095183604**
Option 2 ID : **4410095183603**
Option 3 ID : **4410095183601**
Option 4 ID : **4410095183602**

Q.5 **Which one of the following health technologies was licensed to SmartQR Technologies Private Limited during the India MedTech Expo 2025?**

Ans
✗ 1. Diagnostic ELISA kits for the detection of IgM antibodies against Japanese Encephalitis virus
✗ 2. AFuPEPLISA immunodiagnostic kit for detecting antibodies to Aspergillus fumigatus in patient sera
✓ 3. Colorimetric RT-LAMP (isothermal) assay for rapid detection of Nipah virus
✗ 4. Novel glycoconjugate Salmonella vaccine

Question ID : **4410091539546**
Option 1 ID : **4410096081523**
Option 2 ID : **4410096081524**
Option 3 ID : **4410096081521**
Option 4 ID : **4410096081522**

Q.6 **In November 2025, which university led the medal tally at the Khelo India University Games (KIUG) 2025?**

Ans
✗ 1. Guru Nanak Dev University
✓ 2. Chandigarh University
✗ 3. Lovely Professional University
✗ 4. Jain University

Question ID : **4410091549210**
Option 1 ID : **4410096119542**
Option 2 ID : **4410096119544**
Option 3 ID : **4410096119543**
Option 4 ID : **4410096119541**

Q.7 **In the Kerala Budget 2026-27, an amount of ₹62 crore has been earmarked to provide financial assistance to:**

Ans
✗ 1. Institutions for urban infrastructure development
✗ 2. Institutions for defence modernization
✓ 3. Institutions caring for children with intellectual challenge
✗ 4. Institutions promoting industrial growth

Question ID : **4410091567122**
Option 1 ID : **4410096189806**
Option 2 ID : **4410096189803**
Option 3 ID : **4410096189804**
Option 4 ID : **4410096189805**

Q.8 **Kalpana Patowary is an Indian playback and folk singer from _____.**

Ans
✓ 1. Assam
✗ 2. Punjab
✗ 3. Bihar
✗ 4. Nagaland

Question ID : **441009607856**
Option 1 ID : **4410092386543**
Option 2 ID : **4410092386541**
Option 3 ID : **4410092386542**
Option 4 ID : **4410092386544**

QuickSarkari.com | WhatsApp Channel | Telegram: t.me/quick_sarkari

Q.9 On November 23, 2025, the Hayli Gubbi volcano erupted unexpectedly, marking its first known eruption since the end of the last ice age. In which country did this occur?

Ans
✗ 1. Japan
✓ 2. Ethiopia
✗ 3. Indonesia
✗ 4. Singapore

Question ID : **4410091536543**
Option 1 ID : **4410096069407**
Option 2 ID : **4410096069405**
Option 3 ID : **4410096069406**
Option 4 ID : **4410096069404**

Q.10 In the preparation of an emulsion, what is the primary function of an emulsifier?

Ans
✗ 1. To prevent microbial growth in the mixture
✗ 2. To increase the acidity of the mixture
✓ 3. To keep immiscible liquids uniformly mixed and prevent their separation
✗ 4. To speed up chemical reactions in the mixture

Question ID : **441009624258**
Option 1 ID : **4410092451167**
Option 2 ID : **4410092451165**
Option 3 ID : **4410092451164**
Option 4 ID : **4410092451166**

Q.11 Who wrote *Why the Constitution Matters*, released in August 2025?

Ans
✗ 1. Vivek Singhal
✗ 2. Amish Tripathi
✓ 3. D.Y. Chandrachud
✗ 4. Priyambada Jayakumar

Question ID : **4410091539432**
Option 1 ID : **4410096081065**
Option 2 ID : **4410096081067**
Option 3 ID : **4410096081066**
Option 4 ID : **4410096081068**

Q.12 Which Indian university was ranked highest in the QS World University Rankings 2026?

Ans
✗ 1. IISc Bangalore
✗ 2. IIT Madras
✗ 3. IIT Bombay
✓ 4. IIT Delhi

Question ID : **4410091534726**
Option 1 ID : **4410096062149**
Option 2 ID : **4410096062150**
Option 3 ID : **4410096062147**
Option 4 ID : **4410096062148**

Q.13 The Contact Process is an industrial method used for the large-scale manufacture of which chemical substance?

Ans
✔ 1. Sulfuric acid
✘ 2. Phosphoric acid
✘ 3. Hydrochloric acid
✘ 4. Nitric acid

Question ID : **4410091545573**
Option 1 ID : **4410096105313**
Option 2 ID : **4410096105314**
Option 3 ID : **4410096105311**
Option 4 ID : **4410096105312**

Q.14 Who among the following took oath as the Chief Minister of Manipur on 4th February 2026?

Ans
✔ 1. Yumnam Khemchand Singh
✘ 2. Okram Ibobi Singh
✘ 3. Awangbow Newmai
✘ 4. Govindas Konthoujam

Question ID : **4410091549198**
Option 1 ID : **4410096119493**
Option 2 ID : **4410096119494**
Option 3 ID : **4410096119496**
Option 4 ID : **4410096119495**

Q.15 What is the term used to describe the rate of flow of electric charge through a conductor?

Ans
✘ 1. Resistivity
✘ 2. Potential difference
✘ 3. Electric field
✔ 4. Electric current

Question ID : **441009624758**
Option 1 ID : **4410092453167**
Option 2 ID : **4410092453164**
Option 3 ID : **4410092453166**
Option 4 ID : **4410092453165**

QuickSarkari.com | WhatsApp Channel | Telegram: t.me/quick_sarkari

Q.16 In September 2025, which international day fell on 27 September and is marked worldwide, including in India?

Ans
✗ 1. World Heritage Day
✗ 2. World Health Day
✗ 3. World Water Day
✓ 4. World Tourism Day

Question ID : **4410091549205**
Option 1 ID : **4410096119521**
Option 2 ID : **4410096119522**
Option 3 ID : **4410096119524**
Option 4 ID : **4410096119523**

Q.17 In September 2025, Exercise Yudh Abhyas (India–USA) was conducted at which location?

Ans
✗ 1. Ladakh
✗ 2. Andaman
✓ 3. Alaska
✗ 4. Rajasthan

Question ID : **4410091549334**
Option 1 ID : **4410096120039**
Option 2 ID : **4410096120040**
Option 3 ID : **4410096120037**
Option 4 ID : **4410096120038**

Q.18 Which of the following Indian Naval ships took part in the multilateral naval exercise Malabar-2025 held near Guam in November 2025?

Ans
✗ 1. INS Vagir
✗ 2. INS Kesari
✗ 3. INS Vikramaditya
✓ 4. INS Sahyadri

Question ID : **4410091549340**
Option 1 ID : **4410096120064**
Option 2 ID : **4410096120063**
Option 3 ID : **4410096120062**
Option 4 ID : **4410096120061**

Q.19 Which artist held the exhibition “Remembered Tales” in New Delhi in July 2025?

Ans
✗ 1. Anjolie Ela Menon
✗ 2. Tyeb Mehta
✗ 3. Bhupen Khakhar
✓ 4. Madhvi Parekh

Question ID : **4410091549195**
Option 1 ID : **4410096119481**
Option 2 ID : **4410096119484**
Option 3 ID : **4410096119483**
Option 4 ID : **4410096119482**

Q.20 **Who is regarded as the *father of modern choreography in India* for introducing modern dance through a novel and innovative approach?**

Ans
✗ 1. Birju Maharaj
✗ 2. Rukmini Devi Arundale
✗ 3. Shovana Narayan
✓ 4. Uday Shankar

Question ID : **4410091545030**
Option 1 ID : **4410096103152**
Option 2 ID : **4410096103151**
Option 3 ID : **4410096103154**
Option 4 ID : **4410096103153**

Section : **Arithmetical and Numerical Ability**

Q.1 **Mahip invested some money in HDFC at 10% per annum rate of interest. What would be the corresponding simple interest (in ₹), if after 2 years, Mahip got ₹115.50 as compound interest, considering annual compounding?**

Ans
✗ 1. 120
✗ 2. 105
✗ 3. 125
✓ 4. 110

Question ID : **441009571900**
Option 1 ID : **4410092242722**
Option 2 ID : **4410092242721**
Option 3 ID : **4410092242723**
Option 4 ID : **4410092242720**

Q.2 **Simplify the following expression:**
$152 \div (6 + 2) - 3 \times 2$

Ans
✗ 1. 23
✗ 2. 26
✗ 3. 32
✓ 4. 13

Question ID : **4410091506897**
Option 1 ID : **4410095952031**
Option 2 ID : **4410095952032**
Option 3 ID : **4410095952033**
Option 4 ID : **4410095952030**

Quick Sarkari

Q.3 Find the simple interest (in ₹) on ₹3000 as a sum borrowed at 8% per year rate of interest for 2 years.1689

Ans
✔ 1. 480
✘ 2. 420
✘ 3. 440
✘ 4. 520

Question ID : **441009852971**
Option 1 ID : **4410093364856**
Option 2 ID : **4410093364858**
Option 3 ID : **4410093364859**
Option 4 ID : **4410093364857**

Q.4 The sum of HCF and LCM is 176. The LCM is ten times the HCF. If one number is 80, then the other number will be:

Ans
✘ 1. 40
✘ 2. 16
✔ 3. 32
✘ 4. 24

Question ID : **4410091518658**
Option 1 ID : **4410095997907**
Option 2 ID : **4410095997909**
Option 3 ID : **4410095997906**
Option 4 ID : **4410095997908**

Q.5 Sarang invests a certain sum of money in a bank at an interest rate of 10% per annum, compounded annually. After 2 years, the compound interest earned is ₹126. What would be the corresponding simple interest (in ₹) on the same principal for the same period at the same rate of interest?

Ans
✘ 1. 135
✘ 2. 130
✔ 3. 120
✘ 4. 115

Question ID : **441009571899**
Option 1 ID : **4410092242719**
Option 2 ID : **4410092242718**
Option 3 ID : **4410092242716**
Option 4 ID : **4410092242717**

QuickSarkari.com | WhatsApp Channel | Telegram: t.me/quick_sarkari

Q.6 If $N = 8 - [7 - \{6 - (5 - 4 \text{ of } 2)\}]$, then the value of $N - 4$ is:

Ans
✗ 1. 5
✓ 2. 6
✗ 3. 4
✗ 4. 3

Question ID : **4410091518714**
Option 1 ID : **4410095998136**
Option 2 ID : **4410095998137**
Option 3 ID : **4410095998135**
Option 4 ID : **4410095998134**

Q.7 If the price of two dozen decorative articles is ₹2040, then the price of 32 articles is:

Ans
✗ 1. ₹2685
✓ 2. ₹2720
✗ 3. ₹2850
✗ 4. ₹2500

Question ID : **4410091518089**
Option 1 ID : **4410095995591**
Option 2 ID : **4410095995592**
Option 3 ID : **4410095995593**
Option 4 ID : **4410095995590**

Q.8 Two cyclists start together and go around a circular track of length 300 m. The first cyclist completes one round in 90 seconds. The second cyclist completes one round in 120 seconds. After how many minutes will they meet again at the starting point, and how many rounds will each have completed by then?

Ans
✗ 1. 9 minutes; 6 rounds and 4.5 rounds
✗ 2. 18 minutes; 12 rounds and 9 rounds
✗ 3. 12 minutes; 8 rounds and 6 rounds
✓ 4. 6 minutes; 4 rounds and 3 rounds

Question ID : **4410091530488**
Option 1 ID : **4410096045035**
Option 2 ID : **4410096045036**
Option 3 ID : **4410096045038**
Option 4 ID : **4410096045037**

QuickSarkari.com | WhatsApp Channel | Telegram: t.me/quick_sarkari

Q.9 Find the average of 315, 120, 105 and 98.

Ans
✗ 1. 156.5
✗ 2. 157.5
✗ 3. 158.5
✓ 4. 159.5

Question ID : **4410091480925**
Option 1 ID : **4410095850822**
Option 2 ID : **4410095850823**
Option 3 ID : **4410095850824**
Option 4 ID : **4410095850825**

Q.10 Simplify:

$$\frac{\sqrt[3]{5832}}{\sqrt[4]{10000}} \times \frac{5}{54} \times 66$$

Ans
✓ 1. 11
✗ 2. 8
✗ 3. 3
✗ 4. 19

Question ID : **441009575774**
Option 1 ID : **4410092258216**
Option 2 ID : **4410092258219**
Option 3 ID : **4410092258217**
Option 4 ID : **4410092258218**

Q.11 In what ratio should a grocer mix teas costing ₹29 per kg and ₹37 per kg, so that by selling the mixture at ₹42 per kg, he may gain 20%?

Ans
✗ 1. 1:5
✓ 2. 1:3
✗ 3. 2:3
✗ 4. 3:5

Question ID : **4410091481000**
Option 1 ID : **4410095851131**
Option 2 ID : **4410095851130**
Option 3 ID : **4410095851132**
Option 4 ID : **4410095851133**

QuickSarkari

Q.12 The following graph shows the quantity (in metric tonnes) of rice and wheat stored in five different storage houses:

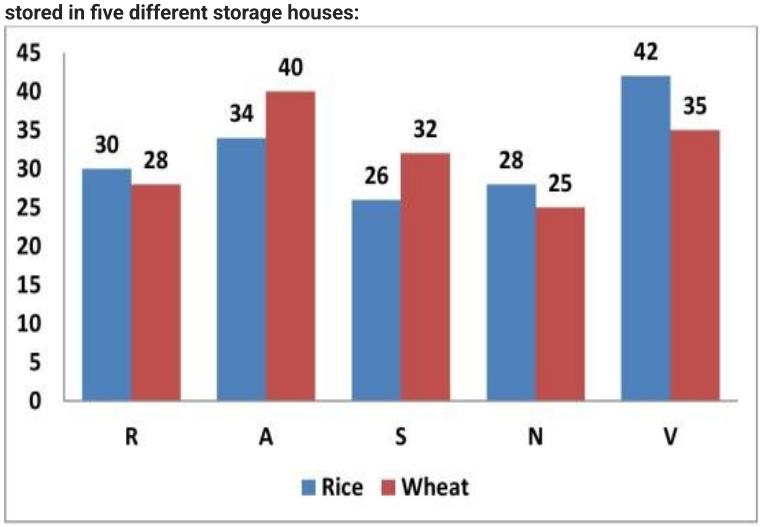

The fraction of wheat stored in storage house A of the total storage of rice in all five storage houses is:

Ans
- ✗ 1. $\frac{3}{5}$
- ✗ 2. $\frac{4}{7}$
- ✓ 3. $\frac{1}{4}$
- ✗ 4. $\frac{2}{3}$

Question ID : **4410091544741**
Option 1 ID : **4410096102025**
Option 2 ID : **4410096102026**
Option 3 ID : **4410096102024**
Option 4 ID : **4410096102023**

Q.13 In a test, B got 54 marks while A got 75 marks, out of 85 maximum marks. What percentage of A's marks was B's marks?

Ans
- ✓ 1. 72%
- ✗ 2. 138.89%
- ✗ 3. 85%
- ✗ 4. 88.23%

Question ID : **441009857267**
Option 1 ID : **4410093382040**
Option 2 ID : **4410093382041**
Option 3 ID : **4410093382042**
Option 4 ID : **4410093382043**

QuickSarkari.com | WhatsApp Channel | Telegram: t.me/quick_sarkari

Q.14 The following graph shows the monthly income (in thousands) of six different persons K, L, W, S, G, and H.

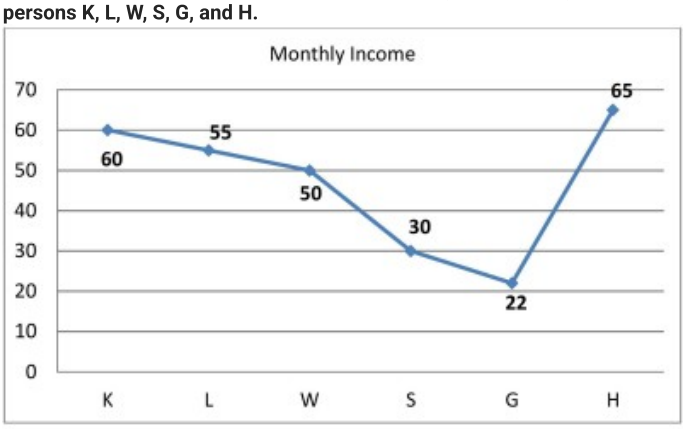

The number of persons who have income above the average income of all six persons is:

Ans
✗ 1. 3
✗ 2. 2
✓ 3. 4
✗ 4. 5

Question ID : **4410091544736**
Option 1 ID : **4410096102004**
Option 2 ID : **4410096102003**
Option 3 ID : **4410096102005**
Option 4 ID : **4410096102006**

Q.15 Find the least number, which, when divided by 6, 14, and 20, leaves remainder 7 in each case.

Ans
✓ 1. 427
✗ 2. 421
✗ 3. 413
✗ 4. 433

Question ID : **4410091496303**
Option 1 ID : **4410095910495**
Option 2 ID : **4410095910494**
Option 3 ID : **4410095910493**
Option 4 ID : **4410095910496**

Q.16 Find the sum of the squares of all natural numbers from 17 to 25 (both inclusive).

Ans
✓ 1. 4029
✗ 2. 4076
✗ 3. 4107
✗ 4. 4123

Question ID : **4410091507974**
Option 1 ID : **4410095956605**
Option 2 ID : **4410095956606**
Option 3 ID : **4410095956607**
Option 4 ID : **4410095956608**

QuickSarkari.com | WhatsApp Channel | Telegram: t.me/quick_sarkari

Q.17 In what ratio must a grocer mix two varieties of wheat worth ₹49 per kg and ₹126 per kg so that if he sells the mixture at ₹130 per kg, he may gain 25%?

Ans
✗ 1. 4:9
✗ 2. 2:3
✓ 3. 2:5
✗ 4. 3:7

Question ID : **441009580207**
Option 1 ID : **4410092275957**
Option 2 ID : **4410092275955**
Option 3 ID : **4410092275954**
Option 4 ID : **4410092275956**

Q.18 Find the value of:
{ [(168 ÷ 12) − (5 × 4)] + (24 ÷ 3) } × 5

Ans
✗ 1. 20
✓ 2. 10
✗ 3. 5
✗ 4. 15

Question ID : **4410091496633**
Option 1 ID : **4410095911808**
Option 2 ID : **4410095911806**
Option 3 ID : **4410095911805**
Option 4 ID : **4410095911807**

Q.19 The population of a village was 180000. It increased by 5% in the first year and increased by 30% in the second year. Its population after two years is _____.8242

Ans
✗ 1. 189000
✗ 2. 243000
✗ 3. 234000
✓ 4. 245700

Question ID : **441009859524**
Option 1 ID : **4410093391069**
Option 2 ID : **4410093391071**
Option 3 ID : **4410093391070**
Option 4 ID : **4410093391068**

QuickSarkari.com | WhatsApp Channel | Telegram: t.me/quick_sarkari

Q.20 In what ratio must a grocer mix two varieties of wheat worth ₹49 per kg and ₹63 per kg so that if he sells the mixture at ₹93 per kg, he may gain 50%?

Ans
✗ 1. 3:14
✗ 2. 2:15
✓ 3. 1:13
✗ 4. 11:18

Question ID : **441009580205**
Option 1 ID : **4410092275947**
Option 2 ID : **4410092275948**
Option 3 ID : **4410092275946**
Option 4 ID : **4410092275949**

Section : **Arithmetical and Numerical Ability1**

Q.1 Two trains of lengths 67 m and 83 m are moving in opposite directions at 10 m/s and 5 m/s, respectively. Find the time taken by the trains to cross each other.

Ans
✗ 1. 5 seconds
✗ 2. 20 seconds
✓ 3. 10 seconds
✗ 4. 15 seconds

Question ID : **4410091493865**
Option 1 ID : **4410095901072**
Option 2 ID : **4410095901075**
Option 3 ID : **4410095901073**
Option 4 ID : **4410095901074**

Q.2 The cost price of a watch is ₹X. This watch is sold at ₹6,000. If the profit on this transaction is 20%, then the value of X is:

Ans
✓ 1. 5,000
✗ 2. 4,000
✗ 3. 4,500
✗ 4. 4,800

Question ID : **4410091518957**
Option 1 ID : **4410095999083**
Option 2 ID : **4410095999082**
Option 3 ID : **4410095999084**
Option 4 ID : **4410095999085**

QuickSarkari.com | WhatsApp Channel | Telegram: t.me/quick_sarkari

Q.3 Divide ₹27,300 into three parts in such a way that half of the first part, one-fourth of the second part and one-eighth of the third part are equal. What is the value of first part (in ₹)?

Ans
✔ 1. 3,900
✘ 2. 4,100
✘ 3. 3,700
✘ 4. 3,600

Question ID : **441009545999**
Option 1 ID : **4410092139392**
Option 2 ID : **4410092139394**
Option 3 ID : **4410092139393**
Option 4 ID : **4410092139395**

Q.4 Find the area of a parallelogram whose base is 22 cm and height is 15 cm.

Ans
✔ 1. 330 cm²
✘ 2. 360 cm²
✘ 3. 350 cm²
✘ 4. 300 cm²

Question ID : **4410091500581**
Option 1 ID : **4410095927191**
Option 2 ID : **4410095927193**
Option 3 ID : **4410095927192**
Option 4 ID : **4410095927190**

Q.5 A cuboid has dimensions 12 cm × 3 cm × 4 cm. Find the length of its longest diagonal (in cm).

Ans
✘ 1. 11
✘ 2. 12
✔ 3. 13
✘ 4. 14

Question ID : **4410091500656**
Option 1 ID : **4410095927530**
Option 2 ID : **4410095927531**
Option 3 ID : **4410095927532**
Option 4 ID : **4410095927533**

Quick Sarkari

Q.6 If the third proportional to 8 and 12 is x, and the third proportional to 12 and x is 27, what is the value of x?

Ans
1. 16
2. 18
3. 20
4. 24

Question ID : **4410091535713**
Option 1 ID : **4410096066091**
Option 2 ID : **4410096066092**
Option 3 ID : **4410096066093**
Option 4 ID : **4410096066094**

Q.7 The sides of a triangle are 26 cm, 28 cm, and 30 cm. Find the area of the triangle.

Ans
1. 330 cm²
2. 363 cm²
3. 336 cm²
4. 326 cm²

Question ID : **4410091564529**
Option 1 ID : **4410096179692**
Option 2 ID : **4410096179691**
Option 3 ID : **4410096179690**
Option 4 ID : **4410096179689**

Q.8 A conical vessel has a height of 24 cm and a base radius of 7 cm. It is inverted and filled with water. Find the volume of water in the vessel. (Take $\pi = \frac{22}{7}$)

Ans
1. 1322 cm3
2. 167 cm3
3. 1232 cm3
4. 176 cm3

Question ID : **4410091550401**
Option 1 ID : **4410096124069**
Option 2 ID : **4410096124070**
Option 3 ID : **4410096124068**
Option 4 ID : **4410096124067**

QuickSarkari.com | WhatsApp Channel | Telegram: t.me/quick_sarkari

Q.9 A solid right circular cylinder of radius 10 cm and height 18 cm is completely melted. During melting, 25% of the material is lost. The remaining metal is recast into identical solid cylindrical rods, each with radius 5 cm and height 9 cm. How many such rods can be formed?

Ans
✗ 1. 7 rods
✓ 2. 6 rods
✗ 3. 9 rods
✗ 4. 10 rods

Question ID : **4410091568108**
Option 1 ID : **4410096193714**
Option 2 ID : **4410096193712**
Option 3 ID : **4410096193713**
Option 4 ID : **4410096193715**

Q.10 A shopkeeper bought six identical mobile phones for ₹78,000. He sold two of these mobile phones for ₹65,000. Find the gain percentage on the sale of the two mobile phones.

Ans
✗ 1. 151%
✗ 2. 147%
✓ 3. 150%
✗ 4. 153%

Question ID : **441009577777**
Option 1 ID : **4410092266235**
Option 2 ID : **4410092266237**
Option 3 ID : **4410092266234**
Option 4 ID : **4410092266236**

Q.11 The list price of a washing machine is ₹62500. It is sold to a retailer after two successive discounts of 12% and 13%. The retailer wants to earn a profit of 14% on his cost price after allowing a 24% discount (on its new list price) to the customer. At what price should he list the washing machine?

Ans
✗ 1. ₹71870
✗ 2. ₹71968
✗ 3. ₹71599
✓ 4. ₹71775

Question ID : **441009915754**
Option 1 ID : **4410093617269**
Option 2 ID : **4410093617268**
Option 3 ID : **4410093617270**
Option 4 ID : **4410093617267**

QuickSarkari.com | WhatsApp Channel | Telegram: t.me/quick_sarkari

Q.12 A cone and a hemisphere have equal volumes. The radius of the cone is 6 cm and height of the cone is 24 cm. Find the radius of the hemisphere. (Answer rounded off to 2 decimal places)

Ans
✔ 1. 7.56 cm
✘ 2. 7.42 cm
✘ 3. 7.28 cm
✘ 4. 7.14 cm

Question ID : **4410091504210**
Option 1 ID : **4410095941313**
Option 2 ID : **4410095941312**
Option 3 ID : **4410095941311**
Option 4 ID : **4410095941310**

Q.13 The volume of a cuboidal box is 3 times the volume of a cubical box. If the length, breadth, and height of the cuboidal box are 12 cm, 9 cm, and 6 cm, respectively, then the side of the cube (in cm) is:

Ans
✘ 1. 4
✘ 2. 10
✘ 3. 8
✔ 4. 6

Question ID : **4410091540655**
Option 1 ID : **4410096085914**
Option 2 ID : **4410096085917**
Option 3 ID : **4410096085916**
Option 4 ID : **4410096085915**

Q.14 Two taps can fill a cistern in 2 hours and 24 hours respectively. A third tap can empty it in 6 hours. How long (in hours) will it take to fill three-fourth of the empty cistern, if all of them are opened together?3974

Ans
✔ 1. 2
✘ 2. 4
✘ 3. 8
✘ 4. 6

Question ID : **441009897287**
Option 1 ID : **4410093543218**
Option 2 ID : **4410093543219**
Option 3 ID : **4410093543221**
Option 4 ID : **4410093543220**

QuickSarkari.com | WhatsApp Channel | Telegram: t.me/quick_sarkari

Q.15 A motorboat covers 24 km downstream in 2 hours and returns the same distance upstream in 3 hours. Find the speed of the stream.

Ans
✗ 1. 2.25 km/hr
✓ 2. 2 km/hr
✗ 3. 2.75 km/hr
✗ 4. 2.5 km/hr

Question ID : **4410091503675**
Option 1 ID : **4410095938997**
Option 2 ID : **4410095938996**
Option 3 ID : **4410095938999**
Option 4 ID : **4410095938998**

Q.16 A shopkeeper offers a discount of 60% on the marked price of an article but still wants to earn a profit of 40% on the cost price. If the cost price of the article is ₹2,000, find the marked price (in ₹).

Ans
✗ 1. 6,800
✓ 2. 7,000
✗ 3. 6,400
✗ 4. 7,200

Question ID : **4410091493677**
Option 1 ID : **4410095900325**
Option 2 ID : **4410095900326**
Option 3 ID : **4410095900324**
Option 4 ID : **4410095900327**

Q.17 A sum of money is to be distributed among A, B, C, D and E such that A:B=2:1, C:B=3:1, D:C=3:2, and D:E=1:2, then the value of A:B:C:D:E is:

Ans
✓ 1. 4:2:6:9:18
✗ 2. 4:2:18:6:7
✗ 3. 3:5:8:12:14
✗ 4. 1:2:3:4:6

Question ID : **4410091519138**
Option 1 ID : **4410095999857**
Option 2 ID : **4410095999856**
Option 3 ID : **4410095999855**
Option 4 ID : **4410095999854**

QuickSarkari.com | WhatsApp Channel | Telegram: t.me/quick_sarkari

Q.18 A cylindrical water tank has radius 2.5 m and height 4.2 m. Find its water capacity. (Use π = 22/7)

Ans
✗ 1. 85,500 liters
✗ 2. 84,000 liters
✗ 3. 81,000 liters
✓ 4. 82,500 liters

Question ID : **4410091504754**
Option 1 ID : **4410095943544**
Option 2 ID : **4410095943543**
Option 3 ID : **4410095943541**
Option 4 ID : **4410095943542**

Q.19 Two pipes fill a tank in 8 hours and 12 hours respectively. If both the pipes are opened together, how long will it take to fill the tank?

Ans
✗ 1. 4 hours 32 minutes
✗ 2. 4 hours 8 minutes
✓ 3. 4 hours 48 minutes
✗ 4. 4 hours 24 minutes

Question ID : **4410091505285**
Option 1 ID : **4410095945554**
Option 2 ID : **4410095945552**
Option 3 ID : **4410095945555**
Option 4 ID : **4410095945553**

Q.20 Find the mean proportional between 29 and 116.

Ans
✗ 1. 87
✗ 2. 43.5
✗ 3. 72.5
✓ 4. 58

Question ID : **4410091505341**
Option 1 ID : **4410095945867**
Option 2 ID : **4410095945864**
Option 3 ID : **4410095945866**
Option 4 ID : **4410095945865**

Section : **English Language and Comprehension**

QuickSarkari.com | WhatsApp Channel | Telegram: t.me/quick_sarkari

Q.1 A statement divided into different segments is given. Rearrange all the segments to form a coherent statement.

O. the scientist entered the laboratory
P. and adjusted the instruments
Q. with cautious steps
R. before starting the experiment
S. to ensure everything was calibrated correctly

Ans
✗ 1. PRSOQ
✗ 2. ORPQS
✓ 3. OQPRS
✗ 4. QROPS

Question ID : **4410091602066**
Option 1 ID : **4410096327858**
Option 2 ID : **4410096327860**
Option 3 ID : **4410096327859**
Option 4 ID : **4410096327861**

Q.2 Choose the correct form of the past tense to complete the sentence.

The company's valuation _____ significantly after its founders _____ a breakthrough partnership with an international firm.

Ans
✗ 1. had risen / negotiated
✗ 2. rose / negotiated
✗ 3. was rising / had negotiated
✓ 4. rose / had negotiated

Question ID : **4410091505892**
Option 1 ID : **4410095947962**
Option 2 ID : **4410095947960**
Option 3 ID : **4410095947963**
Option 4 ID : **4410095947961**

Q.3 In the given question, a statement divided into different segments is given. Rearrange all the segments to form a coherent statement.

(O) especially gender disparities / (P) unless developers ensure fairness / (Q) can reinforce existing biases / (R) while artificial intelligence offers new tools for data analysis / (S) its use in workplaces

Ans
✗ 1. RSPQO
✓ 2. RSQOP
✗ 3. SRQPO
✗ 4. RQOSP

Question ID : **4410091499569**
Option 1 ID : **4410095923183**
Option 2 ID : **4410095923185**
Option 3 ID : **4410095923182**
Option 4 ID : **4410095923184**

QuickSarkari.com | WhatsApp Channel | Telegram: t.me/quick_sarkari

Q.4 **Select the correct one-word substitute for the given expression.**

A person who believes in the existence of only one God

Ans
✔ 1. Monotheist
✘ 2. Polytheist
✘ 3. Atheist
✘ 4. Spiritualist

Question ID : **4410091484154**
Option 1 ID : **4410095863511**
Option 2 ID : **4410095863509**
Option 3 ID : **4410095863510**
Option 4 ID : **4410095863512**

Q.5 **Choose the most appropriate option to complete the sentence.**
She _____ the report before the deadline.

Ans
✘ 1. completion
✘ 2. completing
✘ 3. completes
✔ 4. completed

Question ID : **4410091618708**
Option 1 ID : **4410096393707**
Option 2 ID : **4410096393706**
Option 3 ID : **4410096393704**
Option 4 ID : **4410096393705**

Q.6 **Complete the sentence with the most suitable preposition.**

The conference was postponed _____ further notice because the keynote speaker was unavailable.

Ans
✘ 1. since
✘ 2. for
✔ 3. until
✘ 4. from

Question ID : **4410091483264**
Option 1 ID : **4410095859981**
Option 2 ID : **4410095859980**
Option 3 ID : **4410095859979**
Option 4 ID : **4410095859982**

QuickSarkari

Q.7 **Select the most appropriate options to fill in the blanks.**

The participants responded to the stimuli _____, but their reaction times increased _____ as fatigue set in.

Ans
- ✗ 1. abruptly / rarely
- ✗ 2. efficiently / temporarily
- ✗ 3. casually / accidentally
- ✓ 4. quickly / gradually

Question ID : **4410091496607**
Option 1 ID : **4410095911702**
Option 2 ID : **4410095911704**
Option 3 ID : **4410095911703**
Option 4 ID : **4410095911701**

Q.8 **Choose the option that best substitutes the underlined expression with one word, without changing the meaning.**

The leader's speech was carefully worded to create a positive impression while revealing very little.

Ans
- ✓ 1. diplomatic
- ✗ 2. persuasive
- ✗ 3. guarded
- ✗ 4. strategic

Question ID : **4410091627549**
Option 1 ID : **4410096428481**
Option 2 ID : **4410096428483**
Option 3 ID : **4410096428482**
Option 4 ID : **4410096428484**

Q.9 **Select the correct options to fill in the blanks.**

_____ had the movie begun _____ the lights went off in the theatre.

Ans
- ✗ 1. Hardly , and
- ✗ 2. Until , then
- ✗ 3. Scarcely , before
- ✓ 4. No sooner , than

Question ID : **4410091483044**
Option 1 ID : **4410095859134**
Option 2 ID : **4410095859136**
Option 3 ID : **4410095859135**
Option 4 ID : **4410095859133**

QuickSarkari

Q.10 A statement is divided into different segments is given. The first segment is fixed. Rearrange the other segments to form a coherent and meaningful sentence.

The teacher emphasized
P. the importance of regular practice
Q. in mastering complex concepts
R. during the workshop
S. held for the senior students

Ans
✗ 1. PRSQ
✗ 2. PRQS
✓ 3. PQRS
✗ 4. PQSR

Question ID : **4410091482466**
Option 1 ID : **4410095856851**
Option 2 ID : **4410095856853**
Option 3 ID : **4410095856854**
Option 4 ID : **4410095856852**

Q.11 In the following question, a statement divided into different segments is given. Rearrange all the segments to form a coherent statement.

A – located near Naples, Italy,
B – is one of the most dangerous volcanoes in the world
C – due to its explosive eruptions
D – Mount Vesuvius,

Ans
✓ 1. D A B C
✗ 2. B D A C
✗ 3. A D C B
✗ 4. D B A C

Question ID : **4410091483428**
Option 1 ID : **4410095860620**
Option 2 ID : **4410095860617**
Option 3 ID : **4410095860619**
Option 4 ID : **4410095860618**

Q.12 Select the option that can be used as a one-word substitute for the underlined words.

The patients trusted a fake expert who pretended to be a doctor without any real qualifications, convincing people with false assurances.

Ans
✓ 1. Charlatan
✗ 2. Patron
✗ 3. Polymath
✗ 4. Oracle

Question ID : **4410091505786**
Option 1 ID : **4410095947538**
Option 2 ID : **4410095947536**
Option 3 ID : **4410095947537**
Option 4 ID : **4410095947539**

Quick Sarkari

Q.13 Select the option that can be used as a one-word substitute for the given group of words.

The study of elections and voting.

Ans
✗ 1. Philology
✗ 2. Sociology
✓ 3. Psephology
✗ 4. History

Question ID : **4410091484095**
Option 1 ID : **4410095863271**
Option 2 ID : **4410095863272**
Option 3 ID : **4410095863270**
Option 4 ID : **4410095863269**

Q.14 Parts of a sentence are given below in jumbled order. Arrange the parts in the correct order to form a meaningful sentence.

A. after completing the experiment
B. the students
C. recorded their observations carefully
D. in the laboratory notebook

Ans
✗ 1. A – B – D – C
✗ 2. A – C – B – D
✓ 3. B – A – C – D
✗ 4. B – C – A – D

Question ID : **4410091627500**
Option 1 ID : **4410096428286**
Option 2 ID : **4410096428288**
Option 3 ID : **4410096428285**
Option 4 ID : **4410096428287**

Q.15 Choose the option that best replaces the underlined words with a single word.

The scientist made a/an <u>statement that was accepted as true without proof</u> at the time.

Ans
✓ 1. assumption
✗ 2. theory
✗ 3. inference
✗ 4. hypothesis

Question ID : **4410091627537**
Option 1 ID : **4410096428434**
Option 2 ID : **4410096428435**
Option 3 ID : **4410096428436**
Option 4 ID : **4410096428433**

Quick Sarkari

Q.16 Select the correct one-word substitution for the given phrase.

A person who is unable to read or write.

Ans
✔ 1. Illiterate
✘ 2. Illogical
✘ 3. Ignorant
✘ 4. Uneducated

Question ID : **4410091482421**
Option 1 ID : **4410095856667**
Option 2 ID : **4410095856670**
Option 3 ID : **4410095856669**
Option 4 ID : **4410095856668**

Q.17 Choose the correct option to complete the sentence.

By the time the storm began, the birds _____ to a safer place.

Ans
✔ 1. had flown
✘ 2. will have flown
✘ 3. have flown
✘ 4. were flying

Question ID : **4410091483063**
Option 1 ID : **4410095859206**
Option 2 ID : **4410095859208**
Option 3 ID : **4410095859205**
Option 4 ID : **4410095859207**

Q.18 Choose the option that best replaces the underlined words with a single word.

The actor delivered the dialogue in a/an deliberately exaggerated and dramatic manner.

Ans
✘ 1. ornate
✔ 2. theatrical
✘ 3. emotional
✘ 4. expressive

Question ID : **4410091627555**
Option 1 ID : **4410096428506**
Option 2 ID : **4410096428505**
Option 3 ID : **4410096428508**
Option 4 ID : **4410096428507**

Quick Sarkari

Q.19 In the given question, a statement divided into different segments is given. The first segment is fixed. Rearrange the other segments to form a coherent statement.

1 – A star's life begins
A – and traces of heavier elements,
B – largely comprising hydrogen and helium
C – of a gaseous nebula of material,
D – with the gravitational collapse
E – as its total mass determines its evolution and fate

Ans
✔ 1. 1 D C B A E
✘ 2. 1 C B D A E
✘ 3. 1 D A C E B
✘ 4. 1 D B C A E

Question ID : **4410091483271**
Option 1 ID : **4410095860009**
Option 2 ID : **4410095860007**
Option 3 ID : **4410095860010**
Option 4 ID : **4410095860008**

Q.20 Complete the sentence with the most suitable verbs.

The principal _____ the new rule last week, but the teachers _____ it only after the official circular was sent.

Ans
✘ 1. discussed; avoided
✘ 2. rejected; followed
✘ 3. implemented; announced
✔ 4. announced; implemented

Question ID : **4410091483278**
Option 1 ID : **4410095860033**
Option 2 ID : **4410095860034**
Option 3 ID : **4410095860032**
Option 4 ID : **4410095860031**

Section : **English Language and Comprehension1**

Q.1 Select the option that expresses the given sentence in active voice.

The new library will have been inaugurated by the mayor before the school's anniversary celebration.

Ans
✘ 1. The mayor inaugurated the new library before the school's anniversary celebration.
✘ 2. The mayor has inaugurated the new library before the school's anniversary celebration.
✘ 3. The mayor will inaugurate the new library before the school's anniversary celebration.
✔ 4. The mayor will have inaugurated the new library before the school's anniversary celebration.

Question ID : **4410091483335**
Option 1 ID : **4410095860258**
Option 2 ID : **4410095860255**
Option 3 ID : **4410095860256**
Option 4 ID : **4410095860257**

Q.2 **Choose the option that corrects the spelling error in the following sentence.**
The profesor was extremely conscientious in his meticulous review of the research manuscript.

Ans
✗ 1. meticolous
✓ 2. professor
✗ 3. conscentious
✗ 4. manoscript

Question ID : **4410091487313**
Option 1 ID : **4410095875661**
Option 2 ID : **4410095875659**
Option 3 ID : **4410095875660**
Option 4 ID : **4410095875662**

Q.3 **Choose the correct direct form of the given sentence.**

The professor warned the students that they might fail the course if they did not submit the final paper on time.

Ans
✗ 1. The professor warned, "They might fail the course if they do not submit the final paper on time."
✗ 2. The professor told the students, "You would fail the course if you did not submit the final paper on time."
✓ 3. The professor said to the students, "You might fail the course if you do not submit the final paper on time."
✗ 4. The professor said to the students, "You will fail the course if you do not submit the final paper on time."

Question ID : **4410091485493**
Option 1 ID : **4410095868436**
Option 2 ID : **4410095868435**
Option 3 ID : **4410095868434**
Option 4 ID : **4410095868433**

Q.4 **Select the wrongly spelt word.**

Ans
✗ 1. Camouflage
✗ 2. Supersede
✓ 3. Cemetary
✗ 4. Surveillance

Question ID : **4410091482411**
Option 1 ID : **4410095856628**
Option 2 ID : **4410095856627**
Option 3 ID : **4410095856629**
Option 4 ID : **4410095856630**

Quick Sarkari

Q.5 **Select the wrongly spelt word from the given alternatives.**

Ans
✗ 1. Embarrass
✗ 2. Questionnaire
✓ 3. Priviledge
✗ 4. Millennium

Question ID : **4410091648467**
Option 1 ID : **4410096510098**
Option 2 ID : **4410096510096**
Option 3 ID : **4410096510097**
Option 4 ID : **4410096510099**

Q.6 **Choose the sentence that uses the future tense correctly.**

Ans
✓ 1. By next week, I will have completed my exams.
✗ 2. I would complete my exams last month.
✗ 3. I complete my exams every year.
✗ 4. I will completing my exams soon.

Question ID : **4410091484700**
Option 1 ID : **4410095865576**
Option 2 ID : **4410095865578**
Option 3 ID : **4410095865577**
Option 4 ID : **4410095865579**

Q.7 **Identify the misspelt word in the following sentence.**
The laboratory's equiptment was recently upgraded.

Ans
✗ 1. laboratory
✗ 2. upgraded
✗ 3. recently
✓ 4. equiptment

Question ID : **4410091643302**
Option 1 ID : **4410096489899**
Option 2 ID : **4410096489901**
Option 3 ID : **4410096489900**
Option 4 ID : **4410096489898**

Q.8 **Select the most appropriate passive voice of the given sentence.**

The blue-eyed scientist discovered some new species in my city. 82

Ans
✗ 1. Some new species in my city is discovered by the blue-eyed scientist.
✗ 2. Some new species in my city was discovered by the blue-eyed scientist.
✗ 3. Some new species in my city was being discovered by the blue-eyed scientist.
✓ 4. Some new species in my city were discovered by the blue-eyed scientist.

Question ID : **441009478621**
Option 1 ID : **4410091869833**
Option 2 ID : **4410091869835**
Option 3 ID : **4410091869836**
Option 4 ID : **4410091869834**

Quick Sarkari

Q.9 **Choose the correct active form.**

The clue was found by the inspector near the crime scene.

Ans
✗ 1. The clue had been found near the crime scene by the inspector.

✓ 2. The inspector found the clue near the crime scene.

✗ 3. The clue found the inspector near the crime scene.

✗ 4. The inspector was finding the clue near the crime scene.

Question ID : **4410091505901**
Option 1 ID : **4410095948767**
Option 2 ID : **4410095947996**
Option 3 ID : **4410095947997**
Option 4 ID : **4410095947998**

Q.10 **Choose the option that correctly rectifies the underlined misspelt word in the sentence below.**

The scientist conducted an experimant to test her hypothesis.

Ans
✗ 1. experement

✗ 2. experimint

✓ 3. experiment

✗ 4. experament

Question ID : **4410091651803**
Option 1 ID : **4410096522990**
Option 2 ID : **4410096522993**
Option 3 ID : **4410096522991**
Option 4 ID : **4410096522992**

Comprehension:

Read the given passage carefully and answer the questions that follow.

Alexander found himself at a New York airport in the midst of a crowd with suitcases and bundles, pushing past him, shoving, and stepping on his heels. They looked like robots, half of them with a cell phone clamped to one ear and talking into the air like crazy people. He was alone, his backpack slung over his shoulder and a wrinkled twenty-dollar bill in his hand. He had another three folded and stuck down his boots. His father had cautioned him to be careful; in that huge city, things were not the way they were in the small town on the California coast where they lived, where nothing ever happened. The three children had grown up playing outside with the other kids; they knew everyone and went in and out of their neighbours' homes as if they were their own.

SubQuestion No : 11

Q.11 **Where did Alexander find himself at the beginning of the passage?**

Ans
✓ 1. At a New York airport

✗ 2. In a California park

✗ 3. At a railway station in Boston

✗ 4. At his school playground

Question ID : **4410091479753**
Option 1 ID : **4410095846119**
Option 2 ID : **4410095846118**
Option 3 ID : **4410095846120**
Option 4 ID : **4410095846121**

Comprehension:

Read the given passage carefully and answer the questions that follow.

Alexander found himself at a New York airport in the midst of a crowd with suitcases and bundles, pushing past him, shoving, and stepping on his heels. They looked like robots, half of them with a cell phone clamped to one ear and talking into the air like crazy people. He was alone, his backpack slung over his shoulder and a wrinkled twenty-dollar bill in his hand. He had another three folded and stuck down his boots. His father had cautioned him to be careful; in that huge city, things were not the way they were in the small town on the California coast where they lived, where nothing ever happened. The three children had grown up playing outside with the other kids; they knew everyone and went in and out of their neighbours' homes as if they were their own.

SubQuestion No : 12

Q.12 What does the passage suggest about life in Alexander's hometown compared to New York?

Ans

✗ 1. It was dangerous and unpredictable.

✗ 2. It was busy and fast-paced.

✗ 3. It was equally crowded and noisy.

✓ 4. It was quiet, familiar, and safe.

Question ID : **4410091479754**
Option 1 ID : **4410095846124**
Option 2 ID : **4410095846125**
Option 3 ID : **4410095846122**
Option 4 ID : **4410095846123**

Comprehension:

Read the given passage carefully and answer the questions that follow.

Alexander found himself at a New York airport in the midst of a crowd with suitcases and bundles, pushing past him, shoving, and stepping on his heels. They looked like robots, half of them with a cell phone clamped to one ear and talking into the air like crazy people. He was alone, his backpack slung over his shoulder and a wrinkled twenty-dollar bill in his hand. He had another three folded and stuck down his boots. His father had cautioned him to be careful; in that huge city, things were not the way they were in the small town on the California coast where they lived, where nothing ever happened. The three children had grown up playing outside with the other kids; they knew everyone and went in and out of their neighbours' homes as if they were their own.

SubQuestion No : 13

Q.13 From the description of the crowd, what can be inferred about Alexander's feelings?

Ans

✗ 1. He feels proud to be in a big city.

✗ 2. He feels excited by the energy of the airport.

✗ 3. He feels curious but confident.

✓ 4. He feels lonely and overwhelmed by the chaos.

Question ID : **4410091479755**
Option 1 ID : **4410095846127**
Option 2 ID : **4410095846126**
Option 3 ID : **4410095846128**
Option 4 ID : **4410095846129**

Comprehension:

Read the given passage carefully and answer the questions that follow.

Alexander found himself at a New York airport in the midst of a crowd with suitcases and bundles, pushing past him, shoving, and stepping on his heels. They looked like robots, half of them with a cell phone clamped to one ear and talking into the air like crazy people. He was alone, his backpack slung over his shoulder and a wrinkled twenty-dollar bill in his hand. He had another three folded and stuck down his boots. His father had cautioned him to be careful; in that huge city, things were not the way they were in the small town on the California coast where they lived, where nothing ever happened. The three children had grown up playing outside with the other kids; they knew everyone and went in and out of their neighbours' homes as if they were their own.

SubQuestion No : 14

Q.14 Choose the word that means the opposite of '<u>clamped</u>' as used in the passage.

Ans

✗ 1. fastened

✓ 2. undone

✗ 3. pressed

✗ 4. secured

Question ID : **4410091479756**
Option 1 ID : **4410095846130**
Option 2 ID : **4410095846131**
Option 3 ID : **4410095846132**
Option 4 ID : **4410095846133**

Comprehension:

Read the given passage carefully and answer the questions that follow.

Alexander found himself at a New York airport in the midst of a crowd with suitcases and bundles, pushing past him, shoving, and stepping on his heels. They looked like robots, half of them with a cell phone clamped to one ear and talking into the air like crazy people. He was alone, his backpack slung over his shoulder and a wrinkled twenty-dollar bill in his hand. He had another three folded and stuck down his boots. His father had cautioned him to be careful; in that huge city, things were not the way they were in the small town on the California coast where they lived, where nothing ever happened. The three children had grown up playing outside with the other kids; they knew everyone and went in and out of their neighbours' homes as if they were their own.

SubQuestion No : 15

Q.15 Which of the following would be the most suitable title for the passage?

Ans

✓ 1. A Small-Town Boy in a Big City

✗ 2. The Airport That Never Sleeps

✗ 3. The Lost Backpack

✗ 4. A Busy Day in New York

Question ID : **4410091479757**
Option 1 ID : **4410095846136**
Option 2 ID : **4410095846137**
Option 3 ID : **4410095846135**
Option 4 ID : **4410095846134**

QuickSarkari.com | WhatsApp Channel | Telegram: t.me/quick_sarkari

Comprehension:

Read the given passage carefully and answer the questions that follow.

Nestled in the rocky hills near Kolar, Karnataka, lies Antara Gange, a place locals call "the Ganges from within." A small stream of crystal water flows endlessly from the mouth of a stone bull, even in the hottest summers. Scientists say it might come from an underground spring, yet no one has ever found its true source. At night, villagers claim to hear faint murmurs rising from the caves—voices that sound like chanting monks. Some believe the water carries blessings; others whisper that it hides ancient secrets from forgotten sages. Pilgrims climb the steps at dawn, offering flowers and prayers, while curious travelers enter the dark caverns, their lamps trembling against the stone walls. Whether myth or mystery, Antara Gange remains one of Karnataka's most enigmatic wonders—its silent stream still flowing, its secret still untold.

SubQuestion No : 16

Q.16 What unusual feature makes Antara Gange famous?

Ans

✗ 1. A waterfall that disappears each summer

✓ 2. An endless stream flowing from a stone bull

✗ 3. A temple that glows at night

✗ 4. A cave filled with gold idols

Question ID : **4410091479780**
Option 1 ID : **4410095846223**
Option 2 ID : **4410095846224**
Option 3 ID : **4410095846222**
Option 4 ID : **4410095846225**

Comprehension:

Read the given passage carefully and answer the questions that follow.

Nestled in the rocky hills near Kolar, Karnataka, lies Antara Gange, a place locals call "the Ganges from within." A small stream of crystal water flows endlessly from the mouth of a stone bull, even in the hottest summers. Scientists say it might come from an underground spring, yet no one has ever found its true source. At night, villagers claim to hear faint murmurs rising from the caves—voices that sound like chanting monks. Some believe the water carries blessings; others whisper that it hides ancient secrets from forgotten sages. Pilgrims climb the steps at dawn, offering flowers and prayers, while curious travelers enter the dark caverns, their lamps trembling against the stone walls. Whether myth or mystery, Antara Gange remains one of Karnataka's most enigmatic wonders—its silent stream still flowing, its secret still untold.

SubQuestion No : 17

Q.17 What is the tone of the passage?

Ans

✗ 1. Humorous and casual

✓ 2. Mysterious and reverent

✗ 3. Factual and informative

✗ 4. Skeptical and argumentative

Question ID : **4410091479781**
Option 1 ID : **4410095846227**
Option 2 ID : **4410095846228**
Option 3 ID : **4410095846229**
Option 4 ID : **4410095846226**

Comprehension:

Read the given passage carefully and answer the questions that follow.

Nestled in the rocky hills near Kolar, Karnataka, lies Antara Gange, a place locals call "the Ganges from within." A small stream of crystal water flows endlessly from the mouth of a stone bull, even in the hottest summers. Scientists say it might come from an underground spring, yet no one has ever found its true source. At night, villagers claim to hear faint murmurs rising from the caves—voices that sound like chanting monks. Some believe the water carries blessings; others whisper that it hides ancient secrets from forgotten sages. Pilgrims climb the steps at dawn, offering flowers and prayers, while curious travelers enter the dark caverns, their lamps trembling against the stone walls. Whether myth or mystery, Antara Gange remains one of Karnataka's most enigmatic wonders—its silent stream still flowing, its secret still untold.

SubQuestion No : 18

Q.18 What can be inferred about the villagers' attitude toward the stream?

Ans

✗ 1. They use it only for farming.

✗ 2. They fear it and avoid the area.

✗ 3. They think it is ordinary.

✓ 4. They consider it sacred and mysterious.

Question ID : **4410091479782**
Option 1 ID : **4410095846232**
Option 2 ID : **4410095846230**
Option 3 ID : **4410095846233**
Option 4 ID : **4410095846231**

Comprehension:

Read the given passage carefully and answer the questions that follow.

Nestled in the rocky hills near Kolar, Karnataka, lies Antara Gange, a place locals call "the Ganges from within." A small stream of crystal water flows endlessly from the mouth of a stone bull, even in the hottest summers. Scientists say it might come from an underground spring, yet no one has ever found its true source. At night, villagers claim to hear faint murmurs rising from the caves—voices that sound like chanting monks. Some believe the water carries blessings; others whisper that it hides ancient secrets from forgotten sages. Pilgrims climb the steps at dawn, offering flowers and prayers, while curious travelers enter the dark caverns, their lamps trembling against the stone walls. Whether myth or mystery, Antara Gange remains one of Karnataka's most enigmatic wonders—its silent stream still flowing, its secret still untold.

SubQuestion No : 19

Q.19 How is the passage structured?

Ans

✗ 1. As a dialogue between a pilgrim and a scientist

✓ 2. As a description that blends fact, belief, and mystery

✗ 3. As a comparison between science and superstition

✗ 4. As a chronological travel diary

Question ID : **4410091479783**
Option 1 ID : **4410095846236**
Option 2 ID : **4410095846237**
Option 3 ID : **4410095846234**
Option 4 ID : **4410095846235**

Comprehension:

Read the given passage carefully and answer the questions that follow.

Nestled in the rocky hills near Kolar, Karnataka, lies Antara Gange, a place locals call "the Ganges from within." A small stream of crystal water flows endlessly from the mouth of a stone bull, even in the hottest summers. Scientists say it might come from an underground spring, yet no one has ever found its true source. At night, villagers claim to hear faint murmurs rising from the caves—voices that sound like chanting monks. Some believe the water carries blessings; others whisper that it hides ancient secrets from forgotten sages. Pilgrims climb the steps at dawn, offering flowers and prayers, while curious travelers enter the dark caverns, their lamps trembling against the stone walls. Whether myth or mystery, Antara Gange remains one of Karnataka's most enigmatic wonders—its silent stream still flowing, its secret still untold.

SubQuestion No : 20

Q.20 Choose the word opposite in meaning to 'faint' as used in the passage.

Ans

✗ 1. Vivid

✗ 2. Glaring

✗ 3. Dim

✓ 4. Intense

Question ID : **4410091479784**
Option 1 ID : **4410095846240**
Option 2 ID : **4410095846241**
Option 3 ID : **4410095846238**
Option 4 ID : **4410095846239**

Section : **Hindi Language and Comprehension**

Q.1 दिए गए वाक्यों में से सही क्रम वाले वाक्य का चयन कीजिए।

Ans

✓ 1. ऐसा करने में कोई हानि नहीं है।

✗ 2. ऐसा करने है में कोई हानि नहीं।

✗ 3. ऐसा करने है हानि नहीं में कोई।

✗ 4. है ऐसा करने में कोई हानि नहीं।

Question ID : **441009399478**
Option 1 ID : **4410091563355**
Option 2 ID : **4410091563356**
Option 3 ID : **4410091563357**
Option 4 ID : **4410091563354**

Q.2 डॉक्टर हॉस्पिटल .....चला गया है ।

उपरोक्त वाक्य में रिक्त स्थान की पूर्ति के लिए उचित कारक शब्द का चयन करें –

Ans
✔ 1. से
✘ 2. पर
✘ 3. के
✘ 4. को

Question ID : **441009353996**
Option 1 ID : **4410091382227**
Option 2 ID : **4410091382226**
Option 3 ID : **4410091382225**
Option 4 ID : **4410091382224**

Q.3 निम्नलिखित में से किस मुहावरे का अर्थ 'डर जाना या भयभीत हो जाना' है?

Ans
✔ 1. भीगी बिल्ली बन जाना
✘ 2. युधिष्ठिर होना
✘ 3. रंग जमना
✘ 4. रुस्तम होना

Question ID : **4410091499698**
Option 1 ID : **4410095923687**
Option 2 ID : **4410095923689**
Option 3 ID : **4410095923686**
Option 4 ID : **4410095923688**

Q.4 'जाए लाख रहे साख' लोकोक्ति का सही अर्थ है –

Ans
✘ 1. पूर्ण अधिकार होना
✔ 2. धन भले ही लगे, इज्जत बचनी चाहिए
✘ 3. परिश्रम भले हो पर धन बना रहे
✘ 4. नियमानुसार कार्य करना

Question ID : **4410091529766**
Option 1 ID : **4410096042158**
Option 2 ID : **4410096042157**
Option 3 ID : **4410096042155**
Option 4 ID : **4410096042156**

Q.5 'जो आप से आप उत्पन्न हुआ हो' के लिए एक शब्द है-

Ans
✘ 1. उद्भिज्ज
✘ 2. परिभू
✔ 3. स्वयंभू
✘ 4. पिण्डज

Question ID : **441009261158**
Option 1 ID : **4410091017961**
Option 2 ID : **4410091017959**
Option 3 ID : **4410091017960**
Option 4 ID : **4410091017962**

Q.6 निम्नलिखित वाक्य के रिक्त स्थान में उचित विशेषण की पूर्ति कीजिए-
'यह_____ पेंट है।'

Ans
✗ 1. खट्टा
✗ 2. दम्भी
✓ 3. पुराना
✗ 4. खडूस

Question ID : **441009368619**
Option 1 ID : **4410091440449**
Option 2 ID : **4410091440452**
Option 3 ID : **4410091440451**
Option 4 ID : **4410091440450**

Q.7 निम्नलिखित वाक्य के रिक्त स्थान में उचित कारक चिह्न का प्रयोग करें -
'भारत अतिथि सत्कार एक अद्भुत और गौरवमयी परंपरा रही है।

Ans
✓ 1. में, की
✗ 2. से, की
✗ 3. में, पर
✗ 4. से, में

Question ID : **4410091511114**
Option 1 ID : **4410095968515**
Option 2 ID : **4410095968514**
Option 3 ID : **4410095968517**
Option 4 ID : **4410095968516**

Q.8 वह घर .....है ।

उपरोक्त वाक्य में रिक्त स्थान की पूर्ति के लिए उचित कारक शब्द का चयन करें –

Ans
✗ 1. से
✗ 2. की
✗ 3. को
✓ 4. में

Question ID : **441009353995**
Option 1 ID : **4410091382222**
Option 2 ID : **4410091382223**
Option 3 ID : **4410091382221**
Option 4 ID : **4410091382220**

QuickSarkari.com | WhatsApp Channel | Telegram: t.me/quick_sarkari

Q.9 'हाथ से किए गए चातुर्य' के लिए एक शब्द है-

Ans
✗ 1. हस्तलाघव
✗ 2. हस्तसिद्धि
✓ 3. हस्तशिल्प
✗ 4. हस्तकौशल

Question ID : **441009261162**
Option 1 ID : **4410091017976**
Option 2 ID : **4410091017978**
Option 3 ID : **4410091017977**
Option 4 ID : **4410091017975**

Q.10 'काठ की हांडी एक बार ही चढ़ती है' लोकोक्ति का सही अर्थ है –

Ans
✗ 1. कठिन प्रयत्न एक बार ही किया जाता है
✗ 2. पीड़ा को सहकर ही समझा जा सकता है
✓ 3. कपटपूर्ण व्यवहार एक ही बार चलता है
✗ 4. बिना यत्न किए कुछ भी नहीं मिलता

Question ID : **4410091529761**
Option 1 ID : **4410096042136**
Option 2 ID : **4410096042137**
Option 3 ID : **4410096042135**
Option 4 ID : **4410096042138**

Q.11 सार्वनामिक विशेषण का प्रयोग करते हुए वाक्य पूर्ण करें -
.....महिला तो देखी नहीं

Ans
✗ 1. बुद्धिमान
✓ 2. ऐसी
✗ 3. सुन्दर
✗ 4. मोटी

Question ID : **441009205464**
Option 1 ID : **441009808060**
Option 2 ID : **441009808061**
Option 3 ID : **441009808058**
Option 4 ID : **441009808059**

Q.12 दिए गए विकल्पों में से निम्नलिखित लोकोक्ति का सटीक अर्थ चुनिए -
'अंधों के आगे रोना,अपना दीदा खोना '

Ans
✗ 1. झगड़ा लगाकर अलग हो जाना
✓ 2. नासमझ को समझाने का व्यर्थ प्रयास
✗ 3. बेमेल स्थिति
✗ 4. अपने लिए विपत्ति का आमंत्रण

Question ID : **44100953418**
Option 1 ID : **441009212663**
Option 2 ID : **441009212665**
Option 3 ID : **441009212664**
Option 4 ID : **441009212662**

Q.13 'कंगाली में आटा गीला' लोकोक्ति का अर्थ है3849

Ans
✔ 1. एक मुसीबत पर दूसरी मुसीबत आ पड़ना
✘ 2. हालात बदलते रहना
✘ 3. उलटी बात करना
✘ 4. छोटे अपराध के लिए कड़ा दंड मिलना

Question ID : **441009444129**
Option 1 ID : **4410091735199**
Option 2 ID : **4410091735197**
Option 3 ID : **4410091735198**
Option 4 ID : **4410091735200**

Q.14 शिक्षक ने छात्र .....पढ़ाया ।

उपरोक्त वाक्य में रिक्त स्थान की पूर्ति के लिए उचित कारक शब्द का चयन करें –

Ans
✘ 1. का
✘ 2. के
✔ 3. को
✘ 4. से

Question ID : **441009354002**
Option 1 ID : **4410091382250**
Option 2 ID : **4410091382251**
Option 3 ID : **4410091382249**
Option 4 ID : **4410091382248**

Q.15 दिए गए वाक्यों में से सही क्रम वाले वाक्य का चयन कीजिए।

Ans
✘ 1. है मैंने पिंटू को नहीं मारा।
✔ 2. मैंने पिंटू को नहीं मारा है।
✘ 3. नहीं मारा पिंटू मैंने को है।
✘ 4. पिंटू मैंने को नहीं मारा है।

Question ID : **441009399510**
Option 1 ID : **4410091563490**
Option 2 ID : **4410091563491**
Option 3 ID : **4410091563493**
Option 4 ID : **4410091563492**

Q.16 'जिस पर अभियोग लगाया गया हो' 'वाक्यांश के लिए सार्थक शब्द होगा-

Ans
✘ 1. अभियोग
✘ 2. अभूतपूर्व
✘ 3. अभिलाषी
✔ 4. अभियुक्त

Question ID : **441009354621**
Option 1 ID : **4410091384725**
Option 2 ID : **4410091384727**
Option 3 ID : **4410091384726**
Option 4 ID : **4410091384724**

QuickSarkari.com | WhatsApp Channel | Telegram: t.me/quick_sarkari

Q.17 वह बहुत ___ व्यक्ति है, दूसरों की मदद करने में हमेशा आगे रहता है। रिक्त स्थानों की पूर्ति उचित विशेषण से करें।

Ans
✗ 1. दया
✓ 2. दयालु
✗ 3. दयामय
✗ 4. दयालुता

Question ID : **441009654289**
Option 1 ID : **4410092571448**
Option 2 ID : **4410092571447**
Option 3 ID : **4410092571450**
Option 4 ID : **4410092571449**

Q.18 नीचे दिए गए वाक्यांश के लिए चार विकल्प में से कोई एक सार्थक शब्द का चुनाव कीजिए।

जिसकी गहराई का पता न चल सके5131

Ans
✗ 1. अटल
✓ 2. अथाह
✗ 3. अवैध
✗ 4. अग्रणी

Question ID : **441009476886**
Option 1 ID : **4410091862957**
Option 2 ID : **4410091862958**
Option 3 ID : **4410091862959**
Option 4 ID : **4410091862960**

Q.19 'शव जलाने का स्थान' वाक्यांश के लिए सार्थक शब्द होगा- 5094

Ans
✗ 1. संविदा
✗ 2. शास्त्रज्ञ
✓ 3. श्मशान
✗ 4. शुक्लपक्ष

Question ID : **441009476849**
Option 1 ID : **4410091862810**
Option 2 ID : **4410091862812**
Option 3 ID : **4410091862811**
Option 4 ID : **4410091862809**

QuickSarkari.com | WhatsApp Channel | Telegram: t.me/quick_sarkari

Q.20 'अपने झोपड़े की खैर मनाओ' लोकोक्ति का सही अर्थ है -

Ans ✔ 1. अपनी कुशल देखो

✗ 2. दुहरा फसाद

✗ 3. बिलकुल स्वतंत्र

✗ 4. मूर्ख किन्तु धनी

Question ID : **44100952511**
Option 1 ID : **441009209135**
Option 2 ID : **441009209132**
Option 3 ID : **441009209134**
Option 4 ID : **441009209133**

Section : **Hindi Language and Comprehension1**

Q.1 दिये गए वाक्य के रेखांकित शब्द का विलोम शब्द चुनिए –

शिक्षा और विज्ञान का विकास समाज के <u>उत्थान</u> के लिए अनिवार्य है।

Ans ✗ 1. उन्नयन

✗ 2. आरोहण

✔ 3. पतन

✗ 4. उत्क्रमण

Question ID : **4410091530905**
Option 1 ID : **4410096046699**
Option 2 ID : **4410096046701**
Option 3 ID : **4410096046700**
Option 4 ID : **4410096046702**

Q.2 दिये गए वाक्य के रेखांकित शब्द का विलोम शब्द चुनिए –

साहित्यकार की <u>उत्कृष्ट</u> कृति उसे साहित्य के इतिहास में अमर स्थान दिलाती है।

Ans ✔ 1. निकृष्ट

✗ 2. आकृष्ट

✗ 3. अरिष्ट

✗ 4. आकुष्ट

Question ID : **4410091530933**
Option 1 ID : **4410096046810**
Option 2 ID : **4410096046807**
Option 3 ID : **4410096046808**
Option 4 ID : **4410096046809**

QuickSarkari.com | WhatsApp Channel | Telegram: t.me/quick_sarkari

Q.3 दिए गए विकल्पों में से शुद्ध वाक्य का विकल्प चुनें -

Ans
✗ 1. हमें प्रतिदीन व्यायाम करनी चाहिए।
✗ 2. मुझसे यह काम शंभव नहीं।
✗ 3. मैं हल करने की तलास में हूं।
✓ 4. यह कहना आपकी गलती है।

Question ID : **441009267075**
Option 1 ID : **4410091037567**
Option 2 ID : **4410091037566**
Option 3 ID : **4410091037564**
Option 4 ID : **4410091037565**

Q.4 दिये गये वाक्य के किस भाग में त्रुटि है?
मानव जीवन को सुखमय बनाने के लिए प्रकृति ने अनेक संसाधन पृदान किए हैं।

Ans
✗ 1. मानव जीवन को
✗ 2. प्रकृति ने अनेक संसाधन
✓ 3. पृदान किए हैं।
✗ 4. सुखमय बनाने के लिए

Question ID : **4410091530536**
Option 1 ID : **4410096045227**
Option 2 ID : **4410096045229**
Option 3 ID : **4410096045230**
Option 4 ID : **4410096045228**

Q.5 दिये गये वाक्य के किस भाग में त्रुटि है?

मौसम का परिवतर्न प्राकृतिक सौन्दर्य में चौगुनी वृद्धि कर देता है।

Ans
✓ 1. मौसम का परिवतर्न
✗ 2. प्राकृतिक सौन्दर्य में
✗ 3. कर देता है।
✗ 4. चौगुनी वृद्धि

Question ID : **4410091530589**
Option 1 ID : **4410096045439**
Option 2 ID : **4410096045440**
Option 3 ID : **4410096045442**
Option 4 ID : **4410096045441**

Quick Sarkari

Q.6 निम्नलिखित वाक्य के रेखांकित शब्द का विलोम बताएं -
'मानव प्रतिदिन क्रिकेट खेलने का अभ्यास करता है।'

Ans
✔ 1. अनभ्यास
✘ 2. प्रयास
✘ 3. वरदान
✘ 4. आशीष

Question ID : **4410091515944**
Option 1 ID : **4410095987145**
Option 2 ID : **4410095987146**
Option 3 ID : **4410095987147**
Option 4 ID : **4410095987148**

Q.7 निम्नलिखित वाक्यों में से शुद्ध वर्तनी वाले वाक्य का चयन कीजिए-

Ans
✔ 1. वह व्यक्ति निर्मोही है।
✘ 2. वह व्यक्ति निर्मोहि है।
✘ 3. वह व्यक्ति निर्मोह है।
✘ 4. वह व्यक्ति निर्मोहा है।

Question ID : **4410091499816**
Option 1 ID : **4410095924151**
Option 2 ID : **4410095924153**
Option 3 ID : **4410095924150**
Option 4 ID : **4410095924152**

Q.8 निम्नलिखित वाक्य के रेखांकित शब्द का विलोम बताएं -
'गुरु जी ने गणित के जटिल प्रश्नों का हल करना सिखाया।'

Ans
✘ 1. कठोर
✘ 2. मुश्किल
✔ 3. सरल
✘ 4. असंभव

Question ID : **4410091519152**
Option 1 ID : **4410095999910**
Option 2 ID : **4410095999911**
Option 3 ID : **4410095999913**
Option 4 ID : **4410095999912**

QuickSarkari.com | WhatsApp Channel | Telegram: t.me/quick_sarkari

Q.9 निम्नलिखित वाक्य में 'स्वीकार' के लिए उचित विलोम शब्द की पूर्ति कीजिए-
गुरु ने विद्यार्थी का कार्य स्वीकार किया, परंतु उसकी गलती _____कर दी।

Ans
✗ 1. अलग
✓ 2. अस्वीकार
✗ 3. इंकार
✗ 4. अनसुना

Question ID : **4410091498235**
Option 1 ID : **4410095917961**
Option 2 ID : **4410095917959**
Option 3 ID : **4410095917958**
Option 4 ID : **4410095917960**

Q.10 दिये गए वाक्य के रेखांकित शब्द का पर्यायवाची शब्द चुनिए –

भगवान <u>विष्णु</u> के दशावतार भारतीय संस्कृति और धार्मिक प्रतीकों में गहन महत्त्व रखते हैं।

Ans
✗ 1. चंद्रशेखर
✓ 2. मुकुंद
✗ 3. त्रिलोचन
✗ 4. गिरीश

Question ID : **4410091530800**
Option 1 ID : **4410096046286**
Option 2 ID : **4410096046283**
Option 3 ID : **4410096046285**
Option 4 ID : **4410096046284**

Comprehension:

निम्नलिखित गद्यांश के आधार पर प्रश्नों के उत्तर दें -
जब मोबाइल का आविष्कार हुआ था, तब किसी भी व्यक्ति ने कल्पना भी नहीं की होगी कि मानव सभ्यता में इतना अधिक परिवर्तन हो जाएगा तथा मानव जीवन मोबाइल के इर्द-गिर्द घूमता रहेगा। आज स्थिति ऐसी हो गई है कि व्यक्ति मोबाइल के बिना स्वयं को अपाहिज समझने लगा है। मोबाइल फोन के कारण मानव जीवन सहज और सुखमय हो गया है। यह आज के मानव की अनिवार्य आवश्यकता बन चुका है। कहा जा सकता है की एक छोटा-सा मोबाइल जो व्यक्ति के शर्ट के पॉकेट में आ जाता है, ने मानव जीवन में इतना अधिक क्रांतिकारी परिवर्तन ला दिया है, जितना किसी अन्य आविष्कार ने नहीं किया। इस मोबाइल ने दुनिया के सबसे अमीर व्यक्ति से लेकर सबसे गरीब व्यक्ति के जीवन प्रभावित किया है। मोबाइल ने साधारण लोगों की जीवन शैली में किस सीमा तक प्रवेश कर लिया है, इसका अनुमान हम व्यक्ति के दैनिक जीवन को देखकर लगा सकते हैं।

SubQuestion No : 11

Q.11 उपर्युक्त गद्यांश का शीर्षक बताएं -

Ans
✗ 1. टेलीविजन
✗ 2. मनोरंजन
✓ 3. मोबाइल
✗ 4. स्वस्थ्य

Question ID : **4410091505988**
Option 1 ID : **4410095948336**
Option 2 ID : **4410095948337**
Option 3 ID : **4410095948335**
Option 4 ID : **4410095948338**

Comprehension:

निम्नलिखित गद्यांश के आधार पर प्रश्नों के उत्तर दें -
जब मोबाइल का आविष्कार हुआ था, तब किसी भी व्यक्ति ने कल्पना भी नहीं की होगी कि मानव सभ्यता में इतना अधिक परिवर्तन हो जाएगा तथा मानव जीवन मोबाइल के इर्द-गिर्द घूमता रहेगा। आज स्थिति ऐसी हो गई है कि व्यक्ति मोबाइल के बिना स्वयं को अपाहिज समझने लगा है। मोबाइल फोन के कारण मानव जीवन सहज और सुखमय हो गया है। यह आज के मानव की अनिवार्य आवश्यकता बन चुका है। कहा जा सकता है की एक छोटा-सा मोबाइल जो व्यक्ति के शर्ट के पॉकेट में आ जाता है, ने मानव जीवन में इतना अधिक क्रांतिकारी परिवर्तन ला दिया है, जितना किसी अन्य आविष्कार ने नहीं किया। इस मोबाइल ने दुनिया के सबसे अमीर व्यक्ति से लेकर सबसे गरीब व्यक्ति के जीवन प्रभावित किया है। मोबाइल ने साधारण लोगों की जीवन शैली में किस सीमा तक प्रवेश कर लिया है, इसका अनुमान हम व्यक्ति के दैनिक जीवन को देखकर लगा सकते हैं।

SubQuestion No : 12

Q.12 मोबाइल का मानव जीवन पर क्या प्रभाव पड़ा है?

Ans

✗ 1. मोबाइल मानव जीवन पर बोझ बन गया है।

✓ 2. मोबाइल से मानव जीवन सहज और सुखमय हो गया है।

✗ 3. मोबाइल से मानव जीवन में कोई परिवर्तन नहीं हुआ है।

✗ 4. मोबाइल से मानव जीवन में आर्थिक तंगी आ गई है।

Question ID : **4410091505989**
Option 1 ID : **4410095948341**
Option 2 ID : **4410095948340**
Option 3 ID : **4410095948339**
Option 4 ID : **4410095948342**

Comprehension:

निम्नलिखित गद्यांश के आधार पर प्रश्नों के उत्तर दें -
जब मोबाइल का आविष्कार हुआ था, तब किसी भी व्यक्ति ने कल्पना भी नहीं की होगी कि मानव सभ्यता में इतना अधिक परिवर्तन हो जाएगा तथा मानव जीवन मोबाइल के इर्द-गिर्द घूमता रहेगा। आज स्थिति ऐसी हो गई है कि व्यक्ति मोबाइल के बिना स्वयं को अपाहिज समझने लगा है। मोबाइल फोन के कारण मानव जीवन सहज और सुखमय हो गया है। यह आज के मानव की अनिवार्य आवश्यकता बन चुका है। कहा जा सकता है की एक छोटा-सा मोबाइल जो व्यक्ति के शर्ट के पॉकेट में आ जाता है, ने मानव जीवन में इतना अधिक क्रांतिकारी परिवर्तन ला दिया है, जितना किसी अन्य आविष्कार ने नहीं किया। इस मोबाइल ने दुनिया के सबसे अमीर व्यक्ति से लेकर सबसे गरीब व्यक्ति के जीवन प्रभावित किया है। मोबाइल ने साधारण लोगों की जीवन शैली में किस सीमा तक प्रवेश कर लिया है, इसका अनुमान हम व्यक्ति के दैनिक जीवन को देखकर लगा सकते हैं।

SubQuestion No : 13

Q.13 मानव जीवन में सबसे अधिक परिवर्तन किससे हुआ?

Ans

✓ 1. मोबाइल से

✗ 2. गाड़ी से

✗ 3. धन से

✗ 4. पूजा-पाठ से

Question ID : **4410091505990**
Option 1 ID : **4410095948345**
Option 2 ID : **4410095948343**
Option 3 ID : **4410095948346**
Option 4 ID : **4410095948344**

Comprehension:

निम्नलिखित गद्यांश के आधार पर प्रश्नों के उत्तर दें -
जब मोबाइल का आविष्कार हुआ था, तब किसी भी व्यक्ति ने कल्पना भी नहीं की होगी कि मानव सभ्यता में इतना अधिक परिवर्तन हो जाएगा तथा मानव जीवन मोबाइल के इर्द-गिर्द घूमता रहेगा। आज स्थिति ऐसी हो गई है कि व्यक्ति मोबाइल के बिना स्वयं को अपाहिज समझने लगा है। मोबाइल फोन के कारण मानव जीवन सहज और सुखमय हो गया है। यह आज के मानव की अनिवार्य आवश्यकता बन चुका है। कहा जा सकता है की एक छोटा-सा मोबाइल जो व्यक्ति के शर्ट के पॉकेट में आ जाता है, ने मानव जीवन में इतना अधिक क्रांतिकारी परिवर्तन ला दिया है, जितना किसी अन्य आविष्कार ने नहीं किया। इस मोबाइल ने दुनिया के सबसे अमीर व्यक्ति से लेकर सबसे गरीब व्यक्ति के जीवन प्रभावित किया है। मोबाइल ने साधारण लोगों की जीवन शैली में किस सीमा तक प्रवेश कर लिया है, इसका अनुमान हम व्यक्ति के दैनिक जीवन को देखकर लगा सकते हैं।

SubQuestion No : 14

Q.14 निम्नलिखित में से कौन-से विकल्प में गद्यांश का भाव नहीं है?

Ans

✗ 1. मानव जीवन मोबाइल के इर्द-गिर्द घूमता है।

✗ 2. मोबाइल ने मनुष्य के जीवन को सहज और सुखमय बना दिया है।

✗ 3. मोबाइल के बिना मनुष्य स्वयं को अपाहिज समझता है।

✓ 4. मोबाइल से अधिक परिवर्तन टेलीविजन ने मानव जीवन में किया है।

Question ID : **4410091505991**
Option 1 ID : **4410095948347**
Option 2 ID : **4410095948349**
Option 3 ID : **4410095948348**
Option 4 ID : **4410095948350**

Comprehension:

निम्नलिखित गद्यांश के आधार पर प्रश्नों के उत्तर दें -
जब मोबाइल का आविष्कार हुआ था, तब किसी भी व्यक्ति ने कल्पना भी नहीं की होगी कि मानव सभ्यता में इतना अधिक परिवर्तन हो जाएगा तथा मानव जीवन मोबाइल के इर्द-गिर्द घूमता रहेगा। आज स्थिति ऐसी हो गई है कि व्यक्ति मोबाइल के बिना स्वयं को अपाहिज समझने लगा है। मोबाइल फोन के कारण मानव जीवन सहज और सुखमय हो गया है। यह आज के मानव की अनिवार्य आवश्यकता बन चुका है। कहा जा सकता है की एक छोटा-सा मोबाइल जो व्यक्ति के शर्ट के पॉकेट में आ जाता है, ने मानव जीवन में इतना अधिक क्रांतिकारी परिवर्तन ला दिया है, जितना किसी अन्य आविष्कार ने नहीं किया। इस मोबाइल ने दुनिया के सबसे अमीर व्यक्ति से लेकर सबसे गरीब व्यक्ति के जीवन प्रभावित किया है। मोबाइल ने साधारण लोगों की जीवन शैली में किस सीमा तक प्रवेश कर लिया है, इसका अनुमान हम व्यक्ति के दैनिक जीवन को देखकर लगा सकते हैं।

SubQuestion No : 15

Q.15 गद्यांश का सारांश चुनें -

Ans

✗ 1. दैनिक जीवन में मोबाइल का प्रयोग अधिक नहीं है।

✓ 2. मानव जीवन मोबाइल के इर्द-गिर्द घूमता है।

✗ 3. वर्तमान समय में गरीब मोबाइल का प्रयोग नहीं कर सकते।

✗ 4. अन्य आविष्कारों ने मानव जीवन में क्रांतिकारी परिवर्तन किए हैं।

Question ID : **4410091505992**
Option 1 ID : **4410095948352**
Option 2 ID : **4410095948351**
Option 3 ID : **4410095948354**
Option 4 ID : **4410095948353**

Comprehension:

दिए गए गद्यांश को पढ़कर नीचे लिखे प्रश्नों के उत्तर दीजिए ।

राष्ट्र निर्माण की प्रक्रिया में युवाओं की भूमिका अत्यंत महत्त्वपूर्ण मानी जाती है, क्योंकि युवा वर्ग ऊर्जा, उत्साह, सृजनात्मकता और सकारात्मक परिवर्तन की भावना से परिपूर्ण होता है। उच्च शिक्षा, वैज्ञानिक सोच और तकनीकी दक्षता के माध्यम से युवा न केवल अपनी व्यक्तिगत उन्नति करते हैं, बल्कि समाज को भी प्रगतिशील दिशा प्रदान करते हैं। लोकतांत्रिक मूल्यों की रक्षा, सामाजिक कुरीतियों का उन्मूलन, पर्यावरण संरक्षण और आर्थिक विकास जैसे क्षेत्रों में युवाओं की सक्रिय भागीदारी राष्ट्र को सशक्त बनाती है। आज के समय में डिजिटल नवाचार, स्टार्ट-अप संस्कृति और सामाजिक अभियानों में युवाओं की बढ़ती उपस्थिति उनके नेतृत्व कौशल और जिम्मेदारी के प्रति सजगता को दर्शाती है। यदि युवा अपने कौशल और नैतिक मूल्यों का समुचित उपयोग करें, तो वे राष्ट्र को न केवल वर्तमान चुनौतियों से उबार सकते हैं, बल्कि भविष्य को भी अधिक स्थिर और समृद्ध बना सकते हैं। इस प्रकार, राष्ट्र-निर्माण की सतत प्रक्रिया में युवा एक मजबूत आधार-स्तंभ के रूप में उभरते हैं।

SubQuestion No : 16

Q.16 उपर्युक्त गद्यांश का उचित शीर्षक क्या है?

Ans

✗ 1. राष्ट्र निर्माण में युवाओं का नियमन

✗ 2. राष्ट्र निर्माण में युवाओं की उदासीनता

✓ 3. राष्ट्र निर्माण में युवाओं की भूमिका

✗ 4. राष्ट्र निर्माण में युवाओं की निष्क्रियता

Question ID : **4410091528564**
Option 1 ID : **4410096037417**
Option 2 ID : **4410096037416**
Option 3 ID : **4410096037418**
Option 4 ID : **4410096037415**

Comprehension:

दिए गए गद्यांश को पढ़कर नीचे लिखे प्रश्नों के उत्तर दीजिए ।

राष्ट्र निर्माण की प्रक्रिया में युवाओं की भूमिका अत्यंत महत्त्वपूर्ण मानी जाती है, क्योंकि युवा वर्ग ऊर्जा, उत्साह, सृजनात्मकता और सकारात्मक परिवर्तन की भावना से परिपूर्ण होता है। उच्च शिक्षा, वैज्ञानिक सोच और तकनीकी दक्षता के माध्यम से युवा न केवल अपनी व्यक्तिगत उन्नति करते हैं, बल्कि समाज को भी प्रगतिशील दिशा प्रदान करते हैं। लोकतांत्रिक मूल्यों की रक्षा, सामाजिक कुरीतियों का उन्मूलन, पर्यावरण संरक्षण और आर्थिक विकास जैसे क्षेत्रों में युवाओं की सक्रिय भागीदारी राष्ट्र को सशक्त बनाती है। आज के समय में डिजिटल नवाचार, स्टार्ट-अप संस्कृति और सामाजिक अभियानों में युवाओं की बढ़ती उपस्थिति उनके नेतृत्व कौशल और जिम्मेदारी के प्रति सजगता को दर्शाती है। यदि युवा अपने कौशल और नैतिक मूल्यों का समुचित उपयोग करें, तो वे राष्ट्र को न केवल वर्तमान चुनौतियों से उबार सकते हैं, बल्कि भविष्य को भी अधिक स्थिर और समृद्ध बना सकते हैं। इस प्रकार, राष्ट्र-निर्माण की सतत प्रक्रिया में युवा एक मजबूत आधार-स्तंभ के रूप में उभरते हैं।

SubQuestion No : 17

Q.17 किस क्षेत्र में युवाओं की सक्रिय भागीदारी राष्ट्र को सशक्त बनाने में बाधक है?

Ans

✗ 1. पर्यावरण संरक्षण और आर्थिक विकास

✓ 2. सांप्रदायिक आंदोलन

✗ 3. लोकतांत्रिक मूल्यों की रक्षा

✗ 4. सामाजिक कुरीतियों का उन्मूलन

Question ID : **4410091528565**
Option 1 ID : **4410096037422**
Option 2 ID : **4410096037420**
Option 3 ID : **4410096037419**
Option 4 ID : **4410096037421**

Comprehension:

दिए गए गद्यांश को पढ़कर नीचे लिखे प्रश्नों के उत्तर दीजिए ।

राष्ट्र निर्माण की प्रक्रिया में युवाओं की भूमिका अत्यंत महत्त्वपूर्ण मानी जाती है, क्योंकि युवा वर्ग ऊर्जा, उत्साह, सृजनात्मकता और सकारात्मक परिवर्तन की भावना से परिपूर्ण होता है। उच्च शिक्षा, वैज्ञानिक सोच और तकनीकी दक्षता के माध्यम से युवा न केवल अपनी व्यक्तिगत उन्नति करते हैं, बल्कि समाज को भी प्रगतिशील दिशा प्रदान करते हैं। लोकतांत्रिक मूल्यों की रक्षा, सामाजिक कुरीतियों का उन्मूलन, पर्यावरण संरक्षण और आर्थिक विकास जैसे क्षेत्रों में युवाओं की सक्रिय भागीदारी राष्ट्र को सशक्त बनाती है। आज के समय में डिजिटल नवाचार, स्टार्ट-अप संस्कृति और सामाजिक अभियानों में युवाओं की बढ़ती उपस्थिति उनके नेतृत्व कौशल और जिम्मेदारी के प्रति सजगता को दर्शाती है। यदि युवा अपने कौशल और नैतिक मूल्यों का समुचित उपयोग करें, तो वे राष्ट्र को न केवल वर्तमान चुनौतियों से उबार सकते हैं, बल्कि भविष्य को भी अधिक स्थिर और समृद्ध बना सकते हैं। इस प्रकार, राष्ट्र-निर्माण की सतत प्रक्रिया में युवा एक मजबूत आधार-स्तंभ के रूप में उभरते हैं।

SubQuestion No : 18

Q.18 निम्नलिखित में से कौन-सा कथन उपर्युक्त गद्यांश के अनुसार सही नहीं है?

Ans

✗ 1. युवा वर्ग अपने कौशल और नैतिक मूल्यों का समुचित उपयोग करके राष्ट्र को वर्तमान चुनौतियों से उबार सकता है।

✗ 2. युवा वर्ग उच्च शिक्षा, वैज्ञानिक सोच और तकनीकी दक्षता के माध्यम से समाज को प्रगतिशील दिशा प्रदान करते हैं।

✗ 3. युवा वर्ग ऊर्जा, उत्साह, सृजनात्मकता और सकारात्मक परिवर्तन की भावना से परिपूर्ण होता है।

✓ 4. वर्तमान में डिजिटल नवाचार, स्टार्ट-अप, संस्कृति और सामाजिक अभियानों में युवाओं की उपस्थिति कम हो रही है।

Question ID : **4410091528566**
Option 1 ID : **4410096037423**
Option 2 ID : **4410096037426**
Option 3 ID : **4410096037424**
Option 4 ID : **4410096037425**

Comprehension:

दिए गए गद्यांश को पढ़कर नीचे लिखे प्रश्नों के उत्तर दीजिए ।

राष्ट्र निर्माण की प्रक्रिया में युवाओं की भूमिका अत्यंत महत्त्वपूर्ण मानी जाती है, क्योंकि युवा वर्ग ऊर्जा, उत्साह, सृजनात्मकता और सकारात्मक परिवर्तन की भावना से परिपूर्ण होता है। उच्च शिक्षा, वैज्ञानिक सोच और तकनीकी दक्षता के माध्यम से युवा न केवल अपनी व्यक्तिगत उन्नति करते हैं, बल्कि समाज को भी प्रगतिशील दिशा प्रदान करते हैं। लोकतांत्रिक मूल्यों की रक्षा, सामाजिक कुरीतियों का उन्मूलन, पर्यावरण संरक्षण और आर्थिक विकास जैसे क्षेत्रों में युवाओं की सक्रिय भागीदारी राष्ट्र को सशक्त बनाती है। आज के समय में डिजिटल नवाचार, स्टार्ट-अप संस्कृति और सामाजिक अभियानों में युवाओं की बढ़ती उपस्थिति उनके नेतृत्व कौशल और जिम्मेदारी के प्रति सजगता को दर्शाती है। यदि युवा अपने कौशल और नैतिक मूल्यों का समुचित उपयोग करें, तो वे राष्ट्र को न केवल वर्तमान चुनौतियों से उबार सकते हैं, बल्कि भविष्य को भी अधिक स्थिर और समृद्ध बना सकते हैं। इस प्रकार, राष्ट्र-निर्माण की सतत प्रक्रिया में युवा एक मजबूत आधार-स्तंभ के रूप में उभरते हैं।

SubQuestion No : 19

Q.19 'स्टार्ट-अप','डिजिटल' किस प्रकार के शब्द हैं?

Ans

✗ 1. देशज

✗ 2. तद्भव

✗ 3. तत्सम

✓ 4. विदेशज

Question ID : **4410091528567**
Option 1 ID : **4410096037427**
Option 2 ID : **4410096037429**
Option 3 ID : **4410096037430**
Option 4 ID : **4410096037428**

Comprehension:

दिए गए गद्यांश को पढ़कर नीचे लिखे प्रश्नों के उत्तर दीजिए ।

राष्ट्र निर्माण की प्रक्रिया में युवाओं की भूमिका अत्यंत महत्त्वपूर्ण मानी जाती है, क्योंकि युवा वर्ग ऊर्जा, उत्साह, सृजनात्मकता और सकारात्मक परिवर्तन की भावना से परिपूर्ण होता है। उच्च शिक्षा, वैज्ञानिक सोच और तकनीकी दक्षता के माध्यम से युवा न केवल अपनी व्यक्तिगत उन्नति करते हैं, बल्कि समाज को भी प्रगतिशील दिशा प्रदान करते हैं। लोकतांत्रिक मूल्यों की रक्षा, सामाजिक कुरीतियों का उन्मूलन, पर्यावरण संरक्षण और आर्थिक विकास जैसे क्षेत्रों में युवाओं की सक्रिय भागीदारी राष्ट्र को सशक्त बनाती है। आज के समय में डिजिटल नवाचार, स्टार्ट-अप संस्कृति और सामाजिक अभियानों में युवाओं की बढ़ती उपस्थिति उनके नेतृत्व कौशल और जिम्मेदारी के प्रति सजगता को दर्शाती है। यदि युवा अपने कौशल और नैतिक मूल्यों का समुचित उपयोग करें, तो वे राष्ट्र को न केवल वर्तमान चुनौतियों से उबार सकते हैं, बल्कि भविष्य को भी अधिक स्थिर और समृद्ध बना सकते हैं। इस प्रकार, राष्ट्र-निर्माण की सतत प्रक्रिया में युवा एक मजबूत आधार-स्तंभ के रूप में उभरते हैं।

SubQuestion No : 20

Q.20 'उन्मूलन' का विलोम शब्द क्या है?

Ans

✗ 1. आपण

✗ 2. आगर

✗ 3. कृपण

✓ 4. रोपण

Question ID : **4410091528568**
Option 1 ID : **4410096037433**
Option 2 ID : **4410096037434**
Option 3 ID : **4410096037432**
Option 4 ID : **4410096037431**

QuickSarkari

Quick Sarkari

Thank you for studying with QuickSarkari!

Get the latest Sarkari Naukri notifications, admit cards, results, answer keys and free previous-year papers first - follow us on WhatsApp and Telegram.

Visit www.quicksarkari.com

Join our WhatsApp Channel

https://whatsapp.com/channel/0029VaxxbrREquiPoXTWM229

Join our Telegram Channel

https://t.me/quick_sarkari

Share this PDF with your friends preparing for DSSSB exams.