Quick Sarkari

DSSSB PREVIOUS YEAR PAPER WITH ANSWER KEY

# DSSSB Bailiff

**22 February 2026 · Shift 1**

डीएसएसएसबी बेलिफ़ – 22 फरवरी 2026, शिफ्ट 1 का प्रश्न पत्र, उत्तर कुंजी सहित

| 200 | 120 min | 1 / −0.25 | EN + HI |
|---|---|---|---|
| Questions / प्रश्न | Duration / समय | Marks per Q / अंक | Language / भाषा |

Sections: General intelligence and Reasoning Ability, General Awareness, Arithmetical and Numerical Ability, English Language and Comprehension, Hindi Language and Comprehension

## INSIDE THIS PDF / इस PDF में


**Question Paper in English + Hindi with Answer Key (correct option marked in green) + answer table** Page 2–50
प्रश्न पत्र अंग्रेज़ी + हिंदी में, उत्तर कुंजी सहित (सही विकल्प हरे रंग में) + उत्तर तालिका

**Official DSSSB Response Sheet with Answer Key (correct option ticked in green)** Page 51–121
आधिकारिक DSSSB रिस्पॉन्स शीट, उत्तर कुंजी सहित (सही विकल्प हरे टिक से)


## HOW TO USE THIS PAPER / इस पेपर का उपयोग कैसे करें

1. Attempt the paper first as a timed online mock test (link below).
   पहले नीचे दिए लिंक से इसे टाइमर के साथ ऑनलाइन मॉक टेस्ट के रूप में हल करें।
2. Check your score, section-wise analysis and solutions online.
   ऑनलाइन अपना स्कोर, खंड-वार विश्लेषण और हल देखें।
3. Use this PDF for revision. Correct answers are shown in green.
   दोहराने के लिए इस PDF का उपयोग करें। सही उत्तर हरे रंग में दिए गए हैं।

**Attempt this paper as a FREE online mock test**
इस पेपर को फ्री ऑनलाइन मॉक टेस्ट के रूप में हल करें – टाइमर, स्कोर और हल के साथ
https://quicksarkari.com/dsssb-bailiff-22-february-2026-shift-1-mock-test/

All DSSSB Bailiff papers and mock tests: **quicksarkari.com/dsssb-mock-test/#bailiff**

Join WhatsApp Channel | Join Telegram Channel

# DSSSB Bailiff – Question Paper (English + Hindi)

## DSSSB बेलिफ़ – प्रश्न पत्र (अंग्रेज़ी + हिंदी)

Exam held on 22 February 2026, Shift 1 · 200 questions · correct answers marked ✔ in green
परीक्षा तिथि 22 फरवरी 2026, शिफ्ट 1 · 200 प्रश्न · सही उत्तर हरे रंग में ✔ से चिह्नित

> The official paper for this shift was in English. The Hindi version of each question is a translation prepared by QuickSarkari; the language-section questions are shown as asked.
> इस शिफ्ट का आधिकारिक प्रश्न पत्र अंग्रेज़ी में था। प्रत्येक प्रश्न का हिंदी संस्करण QuickSarkari द्वारा तैयार किया गया अनुवाद है; भाषा खंड के प्रश्न मूल रूप में दिए गए हैं।

## General intelligence and Reasoning Ability

**Q.1** Refer to the following letter and symbol series and answer the question that follows. Counting to be done from left to right only.
(Left) H Q € $ W © I & £ R © & £ $ # D # % * @ X I (Right)
How many such letters are there each of which is immediately preceded by a symbol and also immediately followed by a symbol?

निम्नलिखित अक्षर और प्रतीक श्रृंखला को देखिए और उसके बाद दिए गए प्रश्न का उत्तर दीजिए। गिनती केवल बाएँ से दाएँ की जानी है।
(बाएँ) H Q € $ W © I & £ R © & £ $ # D # % * @ X I (दाएँ)
ऐसे कितने अक्षर हैं, जिनमें से प्रत्येक के ठीक पहले एक प्रतीक है और ठीक बाद भी एक प्रतीक है?

**(1)** 6
**(2)** 5
**(3)** 3
**(4) 4 ✔**

---

**Q.2** Refer to the following series and answer the question.
(Left)
H B G A B C D E F G H T I J K L F O E I O N I O E A U O I I H F H (Right)
If all the consonants are dropped from the series, which letter will be fourth from the right?

निम्नलिखित श्रृंखला को देखिए और प्रश्न का उत्तर दीजिए।
(बाएँ)
H B G A B C D E F G H T I J K L F O E I O N I O E A U O I I H F H (दाएँ)
यदि श्रृंखला से सभी व्यंजन हटा दिए जाएँ, तो दाएँ से चौथा अक्षर कौन-सा होगा?

**(1)** E
**(2)** I
**(3) U ✔**
**(4)** O

---

**Q.3** In a certain code language, A + B means 'A is the mother of B',
A - B means 'A is the brother of B', A × B means 'A is the wife of B' and A ÷ B means 'A is the father of B'.
If W ÷ T - U + V × S, how is W related to S?

एक निश्चित कूट भाषा में, A + B का अर्थ है 'A, B की माता है',
A - B का अर्थ है 'A, B का भाई है', A × B का अर्थ है 'A, B की पत्नी है' और A ÷ B का अर्थ है 'A, B का पिता है'।
यदि W ÷ T - U + V × S है, तो W का S से क्या संबंध है?

**(1) Wife's mother's father / पत्नी की माता के पिता ✔**
**(2)** Father's mother's brother / पिता की माता के भाई
**(3)** Mother's father's sister / माता के पिता की बहन
**(4)** Wife's father's brother / पत्नी के पिता के भाई

---

**Q.4** Each of Abhi, Bikas, Chandu, Diya, Ekansh, Fatima and Gonu has an exam on a different day of a week starting from Monday and ending on Sunday of the same week. Only two people have exams after Diya. Only three people have exams between Diya and Chandu. Fatima has exam immediately after Chandu. Abhi has exam immediately before Bikas but Bikas has not exam on the last day of the week. Gonu has exam immediate after Ekansh. On which day does Fatima have the exam?

अभि, बिकास, चंदू, दीया, एकांश, फातिमा और गोनू में से प्रत्येक की परीक्षा एक ही सप्ताह के सोमवार से शुरू होकर रविवार को समाप्त होने वाले सप्ताह के अलग-अलग दिन है। दीया के बाद केवल दो लोगों की परीक्षा है। दीया और चंदू के बीच केवल तीन लोगों की परीक्षा है। फातिमा की परीक्षा चंदू के ठीक बाद है। अभि की परीक्षा बिकास के ठीक पहले है, लेकिन बिकास की परीक्षा सप्ताह के अंतिम दिन नहीं है। गोनू की परीक्षा एकांश के ठीक बाद है। फातिमा की परीक्षा किस दिन है?

**(1)** Thursday / गुरुवार
**(2)** Wednesday / बुधवार
**(3)** Friday / शुक्रवार
**(4) Tuesday / मंगलवार ✔**

---

**Q.5** Refer to the following letter series and answer the question.
(Left) E R A G E L I K U F O M I N E B J V I Z (Right)
How many such consonants are there ,each of which is immediately preceded by a vowel and also immediately followed by a vowel?

निम्नलिखित अक्षर श्रृंखला को देखिए और प्रश्न का उत्तर दीजिए।
(बाएँ) E R A G E L I K U F O M I N E B J V I Z (दाएँ)
ऐसे कितने व्यंजन हैं, जिनमें से प्रत्येक के ठीक पहले एक स्वर है और ठीक बाद भी एक स्वर है?

**(1)** Two / दो
**(2)** Three / तीन
**(3) Seven / सात ✔**
**(4)** Six / छह

---

**Q.6** Each vowel in the word OBSTACLE is changed to the following second letter in the English alphabetical order and each consonant is changed to the letter immediately preceding it in the English alphabetical order. Then all the letters thus formed are arranged in alphabetical order. Which of the following letters will be third from the right in the new group of letters thus formed?

शब्द OBSTACLE में प्रत्येक स्वर को अंग्रेजी वर्णमाला क्रम में उसके बाद आने वाले दूसरे अक्षर में बदल दिया जाता है और प्रत्येक व्यंजन को अंग्रेजी वर्णमाला क्रम में उसके ठीक पहले वाले अक्षर में बदल दिया जाता है। फिर इस प्रकार बने सभी अक्षरों को वर्णमाला क्रम में व्यवस्थित किया जाता है। इस प्रकार बने अक्षरों के नए समूह में दाएँ से तीसरा अक्षर निम्नलिखित में से कौन-सा होगा?

**(1)** B
**(2)** G
**(3)** K
**(4)** **Q ✔**

---

**Q.7** Refer to the following letter series and answer the question.
(Left) I P A M I F O G E Y T I V B N O Q E X (Right)
How many such consonants are there, each of which is immediately preceded by a vowel and also immediately followed by a vowel?

निम्नलिखित अक्षर श्रृंखला को देखिए और प्रश्न का उत्तर दीजिए।
(बाएँ) I P A M I F O G E Y T I V B N O Q E X (दाएँ)
ऐसे कितने व्यंजन हैं, जिनमें से प्रत्येक के ठीक पहले एक स्वर है और ठीक बाद भी एक स्वर है?

**(1)** Two / दो
**(2)** **Five / पाँच ✔**
**(3)** Four / चार
**(4)** Three / तीन

---

**Q.8** Rohan is the son of Lalita and Lalita is the mother of Sonu. Sonu is the brother of Ravi. Yogita is the wife of Sonu. Nandini and Mahesh are daughter and son of Yogita, respectively. How is Lalita related to Mahesh?

रोहन, ललिता का पुत्र है और ललिता, सोनू की माता है। सोनू, रवि का भाई है। योगिता, सोनू की पत्नी है। नंदिनी और महेश क्रमशः योगिता की पुत्री और पुत्र हैं। ललिता का महेश से क्या संबंध है?

**(1)** **Father's mother / पिता की माता ✔**
**(2)** Father's sister / पिता की बहन
**(3)** Mother's mother / माता की माता
**(4)** Mother / माता

---

**Q.9** Each vowel in the word STABLER is changed to the letter immediately following it in the English alphabetical order and each consonant is changed to the letter immediately preceding it in the English alphabetical order. How many letters will appear exactly twice in the group of letters thus formed?

शब्द STABLER में प्रत्येक स्वर को अंग्रेजी वर्णमाला क्रम में उसके ठीक बाद वाले अक्षर में बदल दिया जाता है और प्रत्येक व्यंजन को अंग्रेजी वर्णमाला क्रम में उसके ठीक पहले वाले अक्षर में बदल दिया जाता है। इस प्रकार बने अक्षरों के समूह में कितने अक्षर ठीक दो बार आएँगे?

**(1)** Two / दो
**(2)** One / एक
**(3)** Three / तीन
**(4)** **Zero / शून्य ✔**

---

**Q.10** Golu, Hema, Jack, Lalu, Mehul and Neha live on six different floors of the same building. The lowermost floor in the building is numbered 1, the floor above it, number 2 and so on till the topmost floor is numbered 6. Hema lives on floor number 4. Only two people live between Hema and Golu. Mehul lives immediately above Golu. Only one person lives between Neha and Jack. Lalu lives immediately above Neha. How many people live between Golu and Neha?

गोलू, हेमा, जैक, लालू, मेहुल और नेहा एक ही इमारत की छह अलग-अलग मंजिलों पर रहते हैं। इमारत की सबसे निचली मंजिल की संख्या 1 है, उसके ऊपर वाली मंजिल की संख्या 2 है और इसी प्रकार सबसे ऊपरी मंजिल की संख्या 6 है। हेमा मंजिल संख्या 4 पर रहती है। हेमा और गोलू के बीच केवल दो लोग रहते हैं। मेहुल, गोलू के ठीक ऊपर रहता है। नेहा और जैक के बीच केवल एक व्यक्ति रहता है। लालू, नेहा के ठीक ऊपर रहता है। गोलू और नेहा के बीच कितने लोग रहते हैं?

**(1)** One / एक
**(2)** None / कोई नहीं
**(3)** **Three / तीन ✔**
**(4)** Two / दो

---

**Q.11** A, B, C, D, and E are sitting around a circular table, facing the center. C sits to the immediate right of E. A sits second to the left of D. Who is sitting to the immediate right of A?

A, B, C, D और E एक वृत्ताकार मेज के चारों ओर केंद्र की ओर मुख करके बैठे हैं। C, E के ठीक दाएँ बैठा है। A, D के बाएँ से दूसरे स्थान पर बैठा है। A के ठीक दाएँ कौन बैठा है?

**(1)** D
**(2)** E
**(3)** C
**(4)** **B ✔**

---

**Q.12** Each of H, I, J, K, L, M, and N has an exam on a different day of a week starting from Monday and ending on Sunday of the same week. K has an exam on Friday.
Only one person has an exam between L and M. J has an exam on the day immediately before N. Only one person has an exam after M. If I's exam is on Wednesday, how many people have exams before L?

H, I, J, K, L, M और N में से प्रत्येक की परीक्षा एक ही सप्ताह के सोमवार से शुरू होकर रविवार को समाप्त होने वाले सप्ताह के अलग-अलग दिन है। K की परीक्षा शुक्रवार को है।
L और M के बीच केवल एक व्यक्ति की परीक्षा है। J की परीक्षा N के ठीक पहले वाले दिन है। M के बाद केवल एक व्यक्ति की परीक्षा है। यदि I की परीक्षा बुधवार को है, तो L से पहले कितने लोगों की परीक्षा है?

**(1)** Four / चार
**(2)** **Three / तीन ✔**
**(3)** Two / दो
**(4)** One / एक

---

**Q.13** In a certain code language, 'DRAW' is coded as '9218' and 'RENT' is coded as '4685'. What is the code for 'R' in the given code language?

एक निश्चित कूट भाषा में, 'DRAW' को '9218' लिखा जाता है और 'RENT' को '4685' लिखा जाता है। उसी कूट भाषा में 'R' का कूट क्या है?

**(1)** 3
**(2)** **8 ✔**
**(3)** 4
**(4)** 5

---

**Q.14** Refer to the following series and answer the question.
(Left)
H A W W A H K Y E B A A O I U K L J U N H G B V F C E W F D F (Right)
If all the consonants are dropped from the series, which letter will be sixth from the right?
निम्नलिखित श्रृंखला को देखिए और प्रश्न का उत्तर दीजिए।
(बाएँ)
H A W W A H K Y E B A A O I U K L J U N H G B V F C E W F D F (दाएँ)
यदि श्रृंखला से सभी व्यंजन हटा दिए जाएँ, तो दाएँ से छठा अक्षर कौन-सा होगा?

**(1)** U
**(2)** E
**(3) A ✔**
**(4)** I

---

**Q.15** Seven people Mihika, Nidhi, Omi, Palak, Qunur, Renu and Siya are sitting in a row, facing north. Renu sits second to the left of Siya and Siya sits at one of the extreme ends. Omi sits fourth to the right of Nidhi. Palak sits immediate left of Qunur. Who sits at the extreme left end of the line?
सात व्यक्ति मिहिका, निधि, ओमी, पलक, कुनूर, रेणु और सिया एक पंक्ति में उत्तर की ओर मुख करके बैठे हैं। रेणु, सिया के बाएँ से दूसरे स्थान पर बैठी है और सिया किसी एक अंतिम छोर पर बैठी है। ओमी, निधि के दाएँ से चौथे स्थान पर बैठी है। पलक, कुनूर के ठीक बाएँ बैठी है। पंक्ति के बाएँ छोर पर कौन बैठा है?

**(1) Mihika / मिहिका ✔**
**(2)** Omi / ओमी
**(3)** Qunur / कुनूर
**(4)** Palak / पलक

---

**Q.16** Seven people F, G, H, Q, R, S and T are sitting around a circular table facing the center of the table. Only two people sit between Q and T when counted from the left of Q. S sits fourth to the left of Q. R sits fourth to the right of T. G is not an immediate neighbor of R or Q. F is not an immediate neighbor of G. Who sits third to the right of H?
सात व्यक्ति F, G, H, Q, R, S और T एक वृत्ताकार मेज के चारों ओर मेज के केंद्र की ओर मुख करके बैठे हैं। Q के बाएँ से गिनने पर Q और T के बीच केवल दो व्यक्ति बैठे हैं। S, Q के बाएँ से चौथे स्थान पर बैठा है। R, T के दाएँ से चौथे स्थान पर बैठा है। G, R या Q का निकटतम पड़ोसी नहीं है। F, G का निकटतम पड़ोसी नहीं है। H के दाएँ से तीसरे स्थान पर कौन बैठा है?

**(1)** R
**(2)** S
**(3)** T
**(4) F ✔**

---

**Q.17** In a certain code language, 'PRAY' is coded as '3246' and 'RAYS' is coded as '2396'. What is the code for 'S' in the given code language?
एक निश्चित कूट भाषा में, 'PRAY' को '3246' लिखा जाता है और 'RAYS' को '2396' लिखा जाता है। उसी कूट भाषा में 'S' का कूट क्या है?

**(1)** 3
**(2) 9 ✔**
**(3)** 6
**(4)** 2

---

**Q.18** Refer to the following letter and symbol series and answer the question. Counting to be done from left to right only.
(Left) I $ E Ω O & A @ U * E Ω I $ A @ U * O & E (Right)
How many such vowels are there, each of which is immediately preceded by a symbol and also immediately followed by another vowel?

निम्नलिखित अक्षर और प्रतीक श्रृंखला को देखिए और प्रश्न का उत्तर दीजिए। गिनती केवल बाएँ से दाएँ की जानी है।
(बाएँ) I $ E Ω O & A @ U * E Ω I $ A @ U * O & E (दाएँ)
ऐसे कितने स्वर हैं, जिनमें से प्रत्येक के ठीक पहले एक प्रतीक है और ठीक बाद एक अन्य स्वर है?

**(1)** Two / दो
**(2)** One / एक
**(3) None / कोई नहीं ✔**
**(4)** Three / तीन

---

**Q.19** In a row of 30 students facing north, Riya is 12th from the left end. What is her position from the right end?

उत्तर की ओर मुख करके खड़े 30 विद्यार्थियों की एक पंक्ति में, रिया बाएँ छोर से 12वें स्थान पर है। दाएँ छोर से उसका स्थान क्या है?

**(1)** 18th / 18वाँ
**(2) 19th / 19वाँ ✔**
**(3)** 17th / 17वाँ
**(4)** 20th / 20वाँ

---

**Q.20** X, Y, Z, W, V, and U are sitting around a circular table facing the center. U sits third to the left of X. W sits to the immediate right of V. Z sits second to the left of X.
How many people are sitting between X and W when counted from the left of X?

X, Y, Z, W, V और U एक वृत्ताकार मेज के चारों ओर केंद्र की ओर मुख करके बैठे हैं। U, X के बाएँ से तीसरे स्थान पर बैठा है। W, V के ठीक दाएँ बैठा है। Z, X के बाएँ से दूसरे स्थान पर बैठा है।
X के बाएँ से गिनने पर X और W के बीच कितने व्यक्ति बैठे हैं?

**(1)** Five / पाँच
**(2)** Two / दो
**(3) Three / तीन ✔**
**(4)** Four / चार

---

**Q.21** If the water source is placed along X-Y, as shown in the figure, which of the following options will be the water reflection of the given figure?

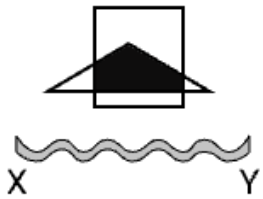


यदि आकृति में दर्शाए अनुसार जल स्रोत को X-Y के अनुदिश रखा जाए, तो निम्नलिखित में से कौन-सा विकल्प दी गई आकृति का जल प्रतिबिंब होगा?

**(1)** 

**(2)** 

**(3)**  ✔

**(4)** 

---

**Q.22** Based on the English alphabetical order, three of the following four letter cluster pairs are alike in a certain way and thus form a group. Which is the one that does not belong to that group?
(Note: The odd man out is not based on the number of consonants/vowels or their position in the letter cluster.)

अंग्रेजी वर्णमाला क्रम के आधार पर, निम्नलिखित चार अक्षर-समूह युग्मों में से तीन किसी निश्चित प्रकार से एकसमान हैं और इस प्रकार एक समूह बनाते हैं। वह कौन-सा युग्म है जो उस समूह से संबंधित नहीं है?
(नोट: असंगत युग्म, व्यंजनों/स्वरों की संख्या या अक्षर-समूह में उनके स्थान पर आधारित नहीं है।)

**(1)** UV−ZA
**(2)** XY−CD
**(3)** BC−GH
**(4)** **LM−PT** ✔

---

**Q.23** Select the pair which follows the same pattern as that followed by the two set of pairs given below. Both pairs follow the same pattern.
OBY : SFC KAQ : OEU

उस युग्म का चयन कीजिए जो उसी पैटर्न का अनुसरण करता है जिसका अनुसरण नीचे दिए गए दो युग्मों द्वारा किया गया है। दोनों युग्म एक ही पैटर्न का अनुसरण करते हैं।
OBY : SFC KAQ : OEU

**(1)** KNW : PQZ
**(2)** ZIT : ENW
**(3)** GTC : LWH
**(4)** **LEA : PIE** ✔

---

QuickSarkari.com | WhatsApp Channel | Telegram: t.me/quick_sarkari

**Q.24** If 'I' stands for '+' , 'J' stands for '×', 'K' stands for '÷', and 'L' stands for '-' what will come in place of the question mark '?' in the following equation?
15 J 3 I (45 K 5) J 2 = ?

यदि 'I' का अर्थ '+' है, 'J' का अर्थ '×' है, 'K' का अर्थ '÷' है और 'L' का अर्थ '-' है, तो निम्नलिखित समीकरण में प्रश्न चिह्न '?' के स्थान पर क्या आएगा?
15 J 3 I (45 K 5) J 2 = ?

**(1)** 72
**(2)** **63 ✔**
**(3)** 51
**(4)** 84

---

**Q.25** Below are given two sets of numbers. In each set of numbers, a certain mathematical operation on the first number results in the second number.
Similarly, certain mathematical operations on the second number result in the third number, and so on.
Which of the given options follows the same set of operations as in the question?
(NOTE – A two/three-digit number cannot be broken into individual digits for operations e.g. if 37 is followed by 10, the operation cannot be 3+7 as a two-digit number cannot be broken into individual digits)
10 – 5 – 25 – 100; 12 – 6 – 36 – 144

नीचे संख्याओं के दो समुच्चय दिए गए हैं। संख्याओं के प्रत्येक समुच्चय में, पहली संख्या पर एक निश्चित गणितीय संक्रिया करने से दूसरी संख्या प्राप्त होती है।
इसी प्रकार, दूसरी संख्या पर कुछ निश्चित गणितीय संक्रियाएँ करने से तीसरी संख्या प्राप्त होती है और इसी प्रकार आगे भी। दिए गए विकल्पों में से कौन-सा विकल्प संक्रियाओं के उसी समुच्चय का अनुसरण करता है जैसा प्रश्न में है?
(नोट – संक्रियाओं के लिए दो/तीन अंकों की संख्या को अलग-अलग अंकों में नहीं तोड़ा जा सकता, उदाहरण के लिए, यदि 37 के बाद 10 आता है, तो संक्रिया 3+7 नहीं हो सकती, क्योंकि दो अंकों की संख्या को अलग-अलग अंकों में नहीं तोड़ा जा सकता)
10 – 5 – 25 – 100; 12 – 6 – 36 – 144

**(1)** 20 – 10 – 100 – 200
**(2)** 15 – 8 – 64 – 225
**(3)** **14 – 7 – 49 – 196 ✔**
**(4)** 18 – 9 – 18 – 324

---

**Q.26** What should come in place of ? in the given series based on the English alphabetical order?
EOT CMR AKP YIN ?

अंग्रेजी वर्णमाला क्रम के आधार पर दी गई श्रृंखला में ? के स्थान पर क्या आना चाहिए?
EOT CMR AKP YIN ?

**(1)** **WGL ✔**
**(2)** WHM
**(3)** VGL
**(4)** VFK

---

**Q.27** Select the set in which the numbers are related in the same way as are the numbers of the following sets.
(NOTE : Operations should be performed on the whole numbers, without breaking down the numbers into its constituent digits. E.g. 13 – Operations on 13 such as adding / subtracting /multiplying etc. to 13 can be performed. Breaking down 13 into 1 and 3 and then performing mathematical operations on 1 and 3 is not allowed.)
(6, 16, 31)
(8, 20, 39)

उस समुच्चय का चयन कीजिए जिसमें संख्याएँ उसी प्रकार संबंधित हैं जिस प्रकार निम्नलिखित समुच्चयों की संख्याएँ संबंधित हैं।
(नोट : संख्याओं को उनके घटक अंकों में तोड़े बिना, संक्रियाएँ पूर्ण संख्याओं पर की जानी चाहिए। उदाहरण के लिए, 13 – 13 पर संक्रियाएँ जैसे 13 में जोड़ना/घटाना/गुणा करना आदि की जा सकती हैं। 13 को 1 और 3 में तोड़कर फिर 1 और 3 पर गणितीय संक्रियाएँ करने की अनुमति नहीं है।)
(6, 16, 31)
(8, 20, 39)

**(1)** (7, 10, 19)
**(2)** (5, 5, 29)
**(3)** (11, 23, 45)
**(4) (9, 22, 43) ✔**

---

**Q.28** If the water source is placed along X-Y, as shown in the figure, which of the following options will be the water reflection of the given figure?

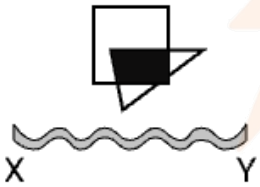


यदि आकृति में दर्शाए अनुसार जल स्रोत को X-Y के अनुदिश रखा जाए, तो निम्नलिखित में से कौन-सा विकल्प दी गई आकृति का जल प्रतिबिंब होगा?

**(1)** 

**(2)** 
✔

**(3)** 

**(4)** 

---

**Q.29** If 'A' stands for '÷', 'B' stands for '×', 'C' stands for '+' and 'D' stands for '–', then what will come in place of the question mark (?) in the following equation?
99 D 144 A 6 B 3 C 11 = ?
यदि 'A' का अर्थ '÷' है, 'B' का अर्थ '×' है, 'C' का अर्थ '+' है और 'D' का अर्थ '–' है, तो निम्नलिखित समीकरण में प्रश्न चिह्न (?) के स्थान पर क्या आएगा?
99 D 144 A 6 B 3 C 11 = ?

**(1)** 40
**(2)** 36
**(3)** 34
**(4) 38 ✔**

---

**Q.30** If 2 is added to each even digit and 2 is added to each odd digit in the number 523764, what will be the sum of all odd digits in the new number thus formed?
यदि संख्या 523764 में प्रत्येक सम अंक में 2 जोड़ा जाए और प्रत्येक विषम अंक में 2 जोड़ा जाए, तो इस प्रकार बनी नई संख्या में सभी विषम अंकों का योग क्या होगा?

**(1)** 26
**(2)** 18
**(3)** 24
**(4) 21 ✔**

---

**Q.31** What will come in the place of '?' in the following equation, if '+' and ' – ' are interchanged and '×' and '÷' are interchanged?
44 ÷ 2 - 18 × 3 + 16 = ?
यदि '+' और ' – ' को आपस में बदल दिया जाए तथा '×' और '÷' को आपस में बदल दिया जाए, तो निम्नलिखित समीकरण में '?' के स्थान पर क्या आएगा?
44 ÷ 2 - 18 × 3 + 16 = ?

**(1) 78 ✔**
**(2)** 52
**(3)** 64
**(4)** 86

---

**Q.32** Based on the English alphabetical order, three of the following four letter cluster pairs are alike in a certain way and thus form a group. Which is the one that does not belong to that group?
(Note: The odd man out is not based on the number of consonants/vowels or their position in the letter cluster.)
अंग्रेजी वर्णमाला क्रम के आधार पर, निम्नलिखित चार अक्षर-समूह युग्मों में से तीन किसी निश्चित प्रकार से एकसमान हैं और इस प्रकार एक समूह बनाते हैं। वह कौन-सा युग्म है जो उस समूह से संबंधित नहीं है?
(नोट: असंगत युग्म, व्यंजनों/स्वरों की संख्या या अक्षर-समूह में उनके स्थान पर आधारित नहीं है।)

**(1)** VD - XG
**(2) TX - VB ✔**
**(3)** SO - UR
**(4)** AJ - CM

---

**Q.33** Select the pair which follows the same pattern as that followed by the two set of pairs given below. Both pairs follow the same pattern.
MGT : NIW JPX : KRA

उस युग्म का चयन कीजिए जो उसी पैटर्न का अनुसरण करता है जिसका अनुसरण नीचे दिए गए दो युग्मों द्वारा किया गया है। दोनों युग्म एक ही पैटर्न का अनुसरण करते हैं।
MGT : NIW JPX : KRA

**(1) HLR : INU ✔**
**(2)** GDU : HFV
**(3)** PIT : QWJ
**(4)** QTY : RUZ

---

**Q.34** 16 is related to 46 following a certain logic. Following the same logic, 21 is related to 56. To which of the following is 13 related, following the same logic?
(NOTE: Operations should be performed on the whole numbers, without breaking down the numbers into its constituent digits. E.g. 13 - Operations on 13 such as adding / subtracting / multiplying etc. to 13 can be performed . Breaking down 13 into 1 and 3 and then performing mathematical operations on 1 and 3 is not allowed.)

16 एक निश्चित तर्क का अनुसरण करते हुए 46 से संबंधित है। उसी तर्क का अनुसरण करते हुए, 21, 56 से संबंधित है। उसी तर्क का अनुसरण करते हुए, 13 निम्नलिखित में से किससे संबंधित है?
(नोट: संख्याओं को उनके घटक अंकों में तोड़े बिना, संक्रियाएँ पूर्ण संख्याओं पर की जानी चाहिए। उदाहरण के लिए, 13 - 13 पर संक्रियाएँ जैसे 13 में जोड़ना/घटाना/गुणा करना आदि की जा सकती हैं। 13 को 1 और 3 में तोड़कर फिर 1 और 3 पर गणितीय संक्रियाएँ करने की अनुमति नहीं है।)

**(1)** 32
**(2) 40 ✔**
**(3)** 42
**(4)** 36

---

**Q.35** Based on the English alphabetical order, three of the following four letter-cluster pairs are alike in a certain way and thus form a group. Which letter-cluster pair DOES NOT belong to that group?
(Note: The odd one out is not based on the number of consonants/vowels or their position in the letter-cluster.)

अंग्रेजी वर्णमाला क्रम के आधार पर, निम्नलिखित चार अक्षर-समूह युग्मों में से तीन किसी निश्चित प्रकार से एकसमान हैं और इस प्रकार एक समूह बनाते हैं। कौन-सा अक्षर-समूह युग्म उस समूह से संबंधित नहीं है?
(नोट: असंगत युग्म, व्यंजनों/स्वरों की संख्या या अक्षर-समूह में उनके स्थान पर आधारित नहीं है।)

**(1)** NO - LM
**(2)** JK - HI
**(3) DE - BD ✔**
**(4)** PQ - NO

---

**Q.36** SILB is related to VLOE in a certain way based on the English alphabetical order. In the same way, QZTO is related to TCWR. To which of the following is AJXN related, following the same logic?

अंग्रेजी वर्णमाला क्रम के आधार पर SILB एक निश्चित प्रकार से VLOE से संबंधित है। उसी प्रकार, QZTO, TCWR से संबंधित है। उसी तर्क का अनुसरण करते हुए, AJXN निम्नलिखित में से किससे संबंधित है?

**(1)** ENZR
**(2)** COBP
**(3) DMAQ ✔**
**(4)** CMBR

---

**Q.37** What should come in place of ? in the given series based on the English alphabetical order?
ABC FGH KLM PQR ?
अंग्रेजी वर्णमाला क्रम के आधार पर दी गई श्रृंखला में ? के स्थान पर क्या आना चाहिए?
ABC FGH KLM PQR ?

**(1)** WXY
**(2)** TUV
**(3)** STU
**(4) UVW ✔**

---

**Q.38** In the following triad, each group of letters is related to the subsequent one following a certain logic. Select from the given options, the one which follows the same logic.
BROW - RBOW - WRBO NOSE - ONSE - EONS
निम्नलिखित त्रय में, अक्षरों का प्रत्येक समूह एक निश्चित तर्क का अनुसरण करते हुए अपने बाद वाले समूह से संबंधित है। दिए गए विकल्पों में से उस विकल्प का चयन कीजिए जो उसी तर्क का अनुसरण करता है।
BROW - RBOW - WRBO NOSE - ONSE - EONS

**(1)** BOKE - BKOE - EKOB
**(2)** RIBE - IRBE - IBER
**(3)** GOLY - OGLY - YOLG
**(4) CORK - OCRK - KOCR ✔**

---

**Q.39** 16 is related to 168 following a certain logic. Following the same logic, 23 is related to 238. To which of the following is 19 related, following the same logic?
(NOTE: Operations should be performed on the whole numbers, without breaking down the numbers into their constituent digits. E.g. 13 – Operations on 13 such as adding/subtracting/multiplying etc. to 13, can be performed. Breaking down 13 into 1 and 3 and then performing mathematical operations on 1 and 3 is not allowed.)
16 एक निश्चित तर्क का अनुसरण करते हुए 168 से संबंधित है। उसी तर्क का अनुसरण करते हुए, 23, 238 से संबंधित है। उसी तर्क का अनुसरण करते हुए, 19 निम्नलिखित में से किससे संबंधित है?
(नोट: संख्याओं को उनके घटक अंकों में तोड़े बिना, संक्रियाएँ पूर्ण संख्याओं पर की जानी चाहिए। उदाहरण के लिए, 13 – 13 पर संक्रियाएँ जैसे 13 में जोड़ना/घटाना/गुणा करना आदि की जा सकती हैं। 13 को 1 और 3 में तोड़कर फिर 1 और 3 पर गणितीय संक्रियाएँ करने की अनुमति नहीं है।)

**(1)** 206
**(2) 198 ✔**
**(3)** 211
**(4)** 190

---

**Q.40** 5 is related to 145 following a certain logic. Following the same logic, 7 is related to 363. To which of the following is 8 related, following the same logic?
(NOTE: Operations should be performed on the whole numbers, without breaking down the numbers into their constituent digits. E.g. 13 – Operations on 13 such as adding/subtracting/multiplying etc. to 13, can be performed. Breaking down 13 into 1 and 3 and then performing mathematical operations on 1 and 3 is not allowed.)

5 एक निश्चित तर्क का अनुसरण करते हुए 145 से संबंधित है। उसी तर्क का अनुसरण करते हुए, 7, 363 से संबंधित है। उसी तर्क का अनुसरण करते हुए, 8 निम्नलिखित में से किससे संबंधित है?
(नोट: संख्याओं को उनके घटक अंकों में तोड़े बिना, संक्रियाएँ पूर्ण संख्याओं पर की जानी चाहिए। उदाहरण के लिए, 13 – 13 पर संक्रियाएँ जैसे 13 में जोड़ना/घटाना/गुणा करना आदि की जा सकती हैं। 13 को 1 और 3 में तोड़कर फिर 1 और 3 पर गणितीय संक्रियाएँ करने की अनुमति नहीं है।)

**(1)** 556
**(2)** 540
**(3)** 548
**(4) 532 ✔**

## General Awareness

**Q.41** In India's pre-reform period (before 1991), how was the role of the private sector characterised?
भारत के सुधार-पूर्व काल (1991 से पहले) में निजी क्षेत्र की भूमिका को किस प्रकार चित्रित किया गया था?

**(1)** Dominant with minimal government control / न्यूनतम सरकारी नियंत्रण के साथ प्रभुत्वशाली
**(2)** Completely absent from industrial activity / औद्योगिक गतिविधि से पूर्णतः अनुपस्थित
**(3)** Fully liberalised and market-driven / पूर्णतः उदारीकृत और बाजार-संचालित
**(4) Restricted and regulated by the government / सरकार द्वारा प्रतिबंधित और विनियमित ✔**

**Q.42** The establishment of the Banking Ombudsman mechanism in 1995 mainly strengthened which institutional aspect of the Indian banking system?
1995 में बैंकिंग लोकपाल तंत्र की स्थापना ने मुख्य रूप से भारतीय बैंकिंग प्रणाली के किस संस्थागत पहलू को सुदृढ़ किया?

**(1)** Credit allocation to priority sectors / प्राथमिकता वाले क्षेत्रों को ऋण आवंटन
**(2)** Monetary policy formulation by the RBI / RBI द्वारा मौद्रिक नीति का निर्माण
**(3) Consumer protection and grievance redressal / उपभोक्ता संरक्षण और शिकायत निवारण ✔**
**(4)** Capital adequacy regulation of banks / बैंकों का पूंजी पर्याप्तता विनियमन

**Q.43** Among India's island groups, which one is primarily of coral origin?
भारत के द्वीप समूहों में से कौन-सा मुख्य रूप से प्रवाल (कोरल) उत्पत्ति का है?

**(1)** Sriharikota Island / श्रीहरिकोटा द्वीप
**(2)** Nicobar Islands / निकोबार द्वीप समूह
**(3) Lakshadweep Islands / लक्षद्वीप द्वीप समूह ✔**
**(4)** Andaman Islands / अंडमान द्वीप समूह

**Q.44** The Citizenship Act, 1955, was enacted by Parliament in exercise of the powers conferred under which provision of the Constitution of India?

नागरिकता अधिनियम, 1955 को संसद द्वारा भारत के संविधान के किस प्रावधान के अंतर्गत प्रदत्त शक्तियों का प्रयोग करते हुए अधिनियमित किया गया था?

**(1)** Article 5 / अनुच्छेद 5

**(2)** Article 6 / अनुच्छेद 6

**(3)** Article 10 / अनुच्छेद 10

**(4)** **Article 11 / अनुच्छेद 11** ✔

---

**Q.45** The strategy of economic development adopted in India's Second Five Year Plan was primarily based on which of the following economic models?

भारत की दूसरी पंचवर्षीय योजना में अपनाई गई आर्थिक विकास की रणनीति मुख्य रूप से निम्नलिखित में से किस आर्थिक मॉडल पर आधारित थी?

**(1)** **Mahalanobis Model / महालनोबिस मॉडल** ✔

**(2)** Harrod–Domar Growth Model / हैरोड–डोमर संवृद्धि मॉडल

**(3)** Gandhian Model / गांधीवादी मॉडल

**(4)** Lewis Dual Sector Model / लुईस द्वैत क्षेत्र मॉडल

---

**Q.46** On which date did the SEBI Act, providing statutory status to the Securities and Exchange Board of India (SEBI), come into force?

भारतीय प्रतिभूति और विनिमय बोर्ड (SEBI) को सांविधिक दर्जा प्रदान करने वाला SEBI अधिनियम किस तिथि को लागू हुआ?

**(1)** **30 January 1992 / 30 जनवरी 1992** ✔

**(2)** 15 March 1991 / 15 मार्च 1991

**(3)** 4 April 1992 / 4 अप्रैल 1992

**(4)** 1 July 1993 / 1 जुलाई 1993

---

**Q.47** The primary objective of the UDAN (Ude Desh ka Aam Naagrik) scheme is to make which service affordable for the common citizen?

उड़ान (उड़े देश का आम नागरिक) योजना का प्राथमिक उद्देश्य आम नागरिक के लिए किस सेवा को किफायती बनाना है?

**(1)** Maritime passenger transport / समुद्री यात्री परिवहन

**(2)** **Air travel / हवाई यात्रा** ✔

**(3)** Rail travel / रेल यात्रा

**(4)** Urban bus services / शहरी बस सेवाएँ

---

**Q.48** Which was the first linguistic state formed in India in 1953?

1953 में भारत में गठित पहला भाषाई राज्य कौन-सा था?

**(1)** Gujarat / गुजरात

**(2)** Tamil Nadu / तमिलनाडु

**(3)** Maharashtra / महाराष्ट्र

**(4)** **Andhra / आंध्र** ✔

---

**Q.49** What happens if the government imposes a price floor higher than the equilibrium price in a market?

यदि सरकार किसी बाजार में संतुलन कीमत से अधिक न्यूनतम कीमत (प्राइस फ्लोर) लागू करती है, तो क्या होता है?

**(1)** The market reaches equilibrium / बाजार संतुलन पर पहुँच जाता है

**(2)** The market collapses / बाजार ध्वस्त हो जाता है

**(3)** Excess demand occurs / अतिरिक्त माँग उत्पन्न होती है

**(4)** **Excess supply occurs / अतिरिक्त पूर्ति उत्पन्न होती है** ✔

---

**Q.50** India shares the longest international land boundary with which of the following countries?
भारत निम्नलिखित में से किस देश के साथ सबसे लंबी अंतर्राष्ट्रीय स्थलीय सीमा साझा करता है?

**(1)** Pakistan / पाकिस्तान
**(2)** **Bangladesh / बांग्लादेश ✔**
**(3)** Myanmar / म्यांमार
**(4)** Sri Lanka / श्रीलंका

---

**Q.51** Birsa Munda's tribal uprising in the 1890s was primarily centred in which region of India?
1890 के दशक में बिरसा मुंडा का जनजातीय विद्रोह मुख्य रूप से भारत के किस क्षेत्र में केंद्रित था?

**(1)** The North-East frontier region / उत्तर-पूर्वी सीमांत क्षेत्र
**(2)** The Deccan plateau region / दक्कन पठार क्षेत्र
**(3)** **The Chotanagpur region / छोटानागपुर क्षेत्र ✔**
**(4)** The Terai foothills region / तराई तलहटी क्षेत्र

---

**Q.52** The reorganisation of Indian states under the States Reorganisation Act, 1956, was primarily based on which of the following criteria?
राज्य पुनर्गठन अधिनियम, 1956 के अंतर्गत भारतीय राज्यों का पुनर्गठन मुख्य रूप से निम्नलिखित में से किस मानदंड पर आधारित था?

**(1)** Religious identity / धार्मिक पहचान
**(2)** Administrative convenience / प्रशासनिक सुविधा
**(3)** **Linguistic principles / भाषाई सिद्धांत ✔**
**(4)** Economic factors / आर्थिक कारक

---

**Q.53** In India, which institution primarily regulates and supervises the financial sector, particularly banking and monetary policy?
भारत में कौन-सी संस्था मुख्य रूप से वित्तीय क्षेत्र, विशेषकर बैंकिंग और मौद्रिक नीति, का विनियमन और पर्यवेक्षण करती है?

**(1)** NITI Aayog / नीति आयोग
**(2)** **Reserve Bank of India / भारतीय रिज़र्व बैंक ✔**
**(3)** Ministry of Finance / वित्त मंत्रालय
**(4)** Securities and Exchange Board of India / भारतीय प्रतिभूति और विनिमय बोर्ड

---

**Q.54** Article 154 of the Constitution of India, which vests the executive power of the State in the Governor, forms part of which constitutional category?
भारत के संविधान का अनुच्छेद 154, जो राज्य की कार्यपालिका शक्ति राज्यपाल में निहित करता है, किस संवैधानिक श्रेणी का भाग है?

**(1)** **Part VI / भाग VI ✔**
**(2)** Part XIV / भाग XIV
**(3)** Part V / भाग V
**(4)** Part XI / भाग XI

---

**Q.55** Considering India's extreme latitudinal and longitudinal limits, along which directional axis does the Indian mainland have its greatest extent?
भारत की चरम अक्षांशीय और देशांतरीय सीमाओं को ध्यान में रखते हुए, भारतीय मुख्य भूमि का सर्वाधिक विस्तार किस दिशात्मक अक्ष के अनुदिश है?

**(1)** Southeast–Northwest / दक्षिण-पूर्व–उत्तर-पश्चिम
**(2)** East–West / पूर्व–पश्चिम
**(3)** Northeast–Southwest / उत्तर-पूर्व–दक्षिण-पश्चिम
**(4)** **North–South / उत्तर–दक्षिण ✔**

---

**Q.56** Gir Forest in Gujarat is renowned as the exclusive natural habitat of which prominent wildlife species in India?

गुजरात का गिर वन भारत में किस प्रमुख वन्यजीव प्रजाति के एकमात्र प्राकृतिक आवास के रूप में प्रसिद्ध है?

**(1) Asiatic Lion / एशियाई शेर ✔**

**(2)** Elephant / हाथी

**(3)** Tiger / बाघ

**(4)** Snow Leopard / हिम तेंदुआ

---

**Q.57** According to the Indian Constitution, which Union Territories of India are provided with both a Legislative Assembly and a Council of Ministers?

भारतीय संविधान के अनुसार, भारत के किन केंद्र शासित प्रदेशों को विधानसभा और मंत्रिपरिषद दोनों प्रदान किए गए हैं?

**(1)** Andaman & Nicobar and Chandigarh / अंडमान और निकोबार तथा चंडीगढ़

**(2)** Lakshadweep and Ladakh / लक्षद्वीप और लद्दाख

**(3) Delhi and Puducherry / दिल्ली और पुडुचेरी ✔**

**(4)** Dadra & Nagar Haveli and Daman & Diu / दादरा और नगर हवेली तथा दमन और दीव

---

**Q.58** The Second Schedule of the Constitution of India contains provisions related to which of the following?

भारत के संविधान की दूसरी अनुसूची में निम्नलिखित में से किससे संबंधित प्रावधान हैं?

**(1)** Forms of oaths and affirmations / शपथ और प्रतिज्ञान के प्रारूप

**(2)** Administration of Scheduled Areas and Scheduled Tribes / अनुसूचित क्षेत्रों और अनुसूचित जनजातियों का प्रशासन

**(3)** Allocation of seats in the Rajya Sabha / राज्यसभा में सीटों का आवंटन

**(4) Salaries and allowances of constitutional authorities / संवैधानिक प्राधिकारियों के वेतन और भत्ते ✔**

---

**Q.59** In which year was the Dutch East India Company established?

डच ईस्ट इंडिया कंपनी की स्थापना किस वर्ष हुई थी?

**(1) 1602 ✔**

**(2)** 1684

**(3)** 1785

**(4)** 1666

---

**Q.60** According to the Census Act, 1948, and official Census of India documentation, what is the primary objective of conducting the Census of India?

जनगणना अधिनियम, 1948 और भारत की जनगणना के आधिकारिक दस्तावेजों के अनुसार, भारत की जनगणना करने का प्राथमिक उद्देश्य क्या है?

**(1) To collect comprehensive population data for national planning and governance / राष्ट्रीय योजना और शासन के लिए व्यापक जनसंख्या आँकड़े एकत्र करना ✔**

**(2)** To compile constituency information for electoral adjustments / चुनावी समायोजन के लिए निर्वाचन क्षेत्र संबंधी जानकारी संकलित करना

**(3)** To record internal migration patterns for administrative purposes / प्रशासनिक उद्देश्यों के लिए आंतरिक प्रवास के प्रतिरूपों को दर्ज करना

**(4)** To estimate birth and death trends for demographic assessment / जनसांख्यिकीय आकलन के लिए जन्म और मृत्यु की प्रवृत्तियों का अनुमान लगाना

---

**Q.61** In July 2025, which Indian Javelin player won the inaugural "NC Classic" title in Bengaluru?
जुलाई 2025 में, किस भारतीय भाला फेंक खिलाड़ी ने बेंगलुरु में पहला "NC क्लासिक" खिताब जीता?

**(1)** Shivpal Singh / शिवपाल सिंह
**(2)** Kishore Kumar / किशोर कुमार
**(3)** Annu Rani / अन्नू रानी
**(4)** **Neeraj Chopra / नीरज चोपड़ा ✔**

---

**Q.62** Which Indian cricketer was named ICC Men's Player of the Month for July 2025?
किस भारतीय क्रिकेटर को जुलाई 2025 के लिए ICC मेन्स प्लेयर ऑफ द मंथ चुना गया?

**(1)** **Shubman Gill / शुभमन गिल ✔**
**(2)** Rohit Sharma / रोहित शर्मा
**(3)** Virat Kohli / विराट कोहली
**(4)** Jasprit Bumrah / जसप्रीत बुमराह

---

**Q.63** Which film award ceremony, held in September 2025, saw Shah Rukh Khan and Vikrant Massey share the Best Actor prize?
सितंबर 2025 में आयोजित किस फिल्म पुरस्कार समारोह में शाहरुख खान और विक्रांत मैसी ने सर्वश्रेष्ठ अभिनेता का पुरस्कार साझा किया?

**(1)** Filmfare Awards / फिल्मफेयर पुरस्कार
**(2)** **National Film Awards / राष्ट्रीय फिल्म पुरस्कार ✔**
**(3)** IIFA Awards / IIFA पुरस्कार
**(4)** Zee Cine Awards / ज़ी सिने पुरस्कार

---

**Q.64** What does the proposed Constitution (130th Amendment) Bill, 2025, seek to change?
प्रस्तावित संविधान (130वाँ संशोधन) विधेयक, 2025 क्या परिवर्तन करना चाहता है?

**(1)** Introduce a Uniform Civil Code / समान नागरिक संहिता लागू करना
**(2)** **Provision for removal of Ministers / मंत्रियों को हटाने का प्रावधान ✔**
**(3)** Economically Weaker Sections of society / समाज के आर्थिक रूप से कमजोर वर्ग
**(4)** Increase the retirement age of judges / न्यायाधीशों की सेवानिवृत्ति आयु बढ़ाना

---

**Q.65** Mamta Chandrakar is a famous folk singer of _____.
ममता चंद्राकर _____ की प्रसिद्ध लोक गायिका हैं।

**(1)** Rajasthan / राजस्थान
**(2)** **Chhattisgarh / छत्तीसगढ़ ✔**
**(3)** Gujarat / गुजरात
**(4)** Punjab / पंजाब

---

**Q.66** In June 2025, the Ministry of Minority Affairs launched a centralized digital portal for real-time monitoring of Waqf properties. What is the name of this portal?
जून 2025 में, अल्पसंख्यक कार्य मंत्रालय ने वक्फ संपत्तियों की वास्तविक समय निगरानी के लिए एक केंद्रीकृत डिजिटल पोर्टल शुरू किया। इस पोर्टल का नाम क्या है?

**(1)** **UMEED Central Portal / UMEED सेंट्रल पोर्टल ✔**
**(2)** National Waqf Registry Portal / नेशनल वक्फ रजिस्ट्री पोर्टल
**(3)** e Waqf Monitoring Portal / ई-वक्फ मॉनिटरिंग पोर्टल
**(4)** WAQF Connect Portal / WAQF कनेक्ट पोर्टल

---

**Q.67** In January 2026, which public affairs leader received the Padma Vibhushan posthumously?
जनवरी 2026 में, किस सार्वजनिक मामलों के नेता को मरणोपरांत पद्म विभूषण से सम्मानित किया गया?

**(1)** V. K. Malhotra / वी. के. मल्होत्रा
**(2)** Bhagat Koshyari / भगत कोश्यारी
**(3)** **V. S. Achuthanandhan / वी. एस. अच्युतानंदन ✔**
**(4)** Shibu Soren / शिबू सोरेन

---

**Q.68** G20 Leaders' Summit was held in which country in November 2025?
नवंबर 2025 में G20 नेताओं का शिखर सम्मेलन किस देश में आयोजित किया गया था?

**(1)** Brazil / ब्राज़ील
**(2)** Australia / ऑस्ट्रेलिया
**(3)** **South Africa / दक्षिण अफ्रीका ✔**
**(4)** France / फ्रांस

---

**Q.69** Why did the new labour codes introduce the rule that at least 50% of total remuneration must be counted as wages?
नई श्रम संहिताओं में यह नियम क्यों लाया गया कि कुल पारिश्रमिक का कम से कम 50% मजदूरी के रूप में गिना जाना चाहिए?

**(1)** To lower employee PF contributions / कर्मचारी PF अंशदान को कम करने के लिए
**(2)** To eliminate allowances entirely / भत्तों को पूरी तरह समाप्त करने के लिए
**(3)** **To ensure uniform statutory benefit calculation / सांविधिक लाभों की एकसमान गणना सुनिश्चित करने के लिए ✔**
**(4)** To reduce employer liabilities / नियोक्ता की देनदारियों को कम करने के लिए

---

**Q.70** In January 2026, which communication method was highlighted for improving litigant access to court information?
जनवरी 2026 में, वादियों की न्यायालय संबंधी जानकारी तक पहुँच में सुधार के लिए किस संचार पद्धति पर प्रकाश डाला गया?

**(1)** Fax notices / फैक्स नोटिस
**(2)** Voice messages / वॉयस संदेश
**(3)** **SMS alerts / SMS अलर्ट ✔**
**(4)** Postal cards / पोस्टकार्ड

---

**Q.71** Which of the following organisations has raised India's GDP growth forecast by 40 basis points (bps) to 6.7 per cent in 2025?
निम्नलिखित में से किस संगठन ने 2025 में भारत के GDP संवृद्धि पूर्वानुमान को 40 आधार अंक (bps) बढ़ाकर 6.7 प्रतिशत कर दिया है?

**(1)** Asian Infrastructure Investment Bank (AIIB) / एशियाई अवसंरचना निवेश बैंक (AIIB)
**(2)** International Economic Development Council (IEDC) / अंतर्राष्ट्रीय आर्थिक विकास परिषद (IEDC)
**(3)** **Organisation for Economic Cooperation and Development (OECD) / आर्थिक सहयोग और विकास संगठन (OECD) ✔**
**(4)** World Bank Group (WBG) / विश्व बैंक समूह (WBG)

---

**Q.72** In the SI system of units, which category includes units of physical quantities that are expressed as combinations of base units such as metre, kilogram, and second?

मात्रकों की SI प्रणाली में, किस श्रेणी में उन भौतिक राशियों के मात्रक शामिल हैं जिन्हें मीटर, किलोग्राम और सेकंड जैसे मूल मात्रकों के संयोजन के रूप में व्यक्त किया जाता है?

**(1) Derived units / व्युत्पन्न मात्रक ✔**

**(2)** Fundamental units / मूलभूत मात्रक

**(3)** Vector quantities / सदिश राशियाँ

**(4)** Standard Base units / मानक मूल मात्रक

---

**Q.73** Which saint from Karnataka is known for leading the Lingayat movement?

कर्नाटक के किस संत को लिंगायत आंदोलन का नेतृत्व करने के लिए जाना जाता है?

**(1)** Ramanuja / रामानुज

**(2) Basavanna / बसवन्ना ✔**

**(3)** Tukaram / तुकाराम

**(4)** Vidyaranya / विद्यारण्य

---

**Q.74** Which national science award was posthumously conferred on physicist Jayant Vishnu Narlikar in October 2025?

अक्टूबर 2025 में भौतिक विज्ञानी जयंत विष्णु नार्लीकर को मरणोपरांत कौन-सा राष्ट्रीय विज्ञान पुरस्कार प्रदान किया गया?

**(1)** Homi Bhabha Medal / होमी भाभा पदक

**(2)** Infosys Prize / इन्फोसिस पुरस्कार

**(3)** Shanti Swarup Bhatnagar Prize / शांति स्वरूप भटनागर पुरस्कार

**(4) Vigyan Ratna Puraskar / विज्ञान रत्न पुरस्कार ✔**

---

**Q.75** As per the Government of India's notifications recognising Classical Languages up to and including the additions made in 2024, how many Classical Languages does India have in total?

2024 में किए गए परिवर्धनों सहित, शास्त्रीय भाषाओं को मान्यता देने वाली भारत सरकार की अधिसूचनाओं के अनुसार, भारत में कुल कितनी शास्त्रीय भाषाएँ हैं?

**(1)** 8

**(2)** 10

**(3) 11 ✔**

**(4)** 6

---

**Q.76** In July 2025, what did the Supreme Court decide about a state Speaker acting as an adjudicating authority on disqualification petitions?

जुलाई 2025 में, सर्वोच्च न्यायालय ने अयोग्यता याचिकाओं पर न्यायनिर्णायक प्राधिकारी के रूप में कार्य करने वाले राज्य विधानसभा अध्यक्ष के संबंध में क्या निर्णय दिया?

**(1) No immunity when acting as adjudicating authority / न्यायनिर्णायक प्राधिकारी के रूप में कार्य करते समय कोई उन्मुक्ति नहीं ✔**

**(2)** Immunity unless reviewed by High Court / उन्मुक्ति, जब तक उच्च न्यायालय द्वारा समीक्षा न की जाए

**(3)** Immunity only for certain orders / केवल कुछ आदेशों के लिए उन्मुक्ति

**(4)** Full constitutional immunity applies / पूर्ण संवैधानिक उन्मुक्ति लागू होती है

---

**Q.77** Which chemical among the following is responsible for the depletion of the Ozone layer in the atmosphere?

निम्नलिखित में से कौन-सा रसायन वायुमंडल में ओज़ोन परत के क्षरण के लिए उत्तरदायी है?

**(1) Chlorofluorocarbons / क्लोरोफ्लोरोकार्बन ✔**

**(2)** Magnesium oxide / मैग्नीशियम ऑक्साइड

**(3)** Manganese oxide / मैंगनीज ऑक्साइड

**(4)** Sodium chloride / सोडियम क्लोराइड

---

**Q.78** Which SI unit is used to measure the rate of radioactive disintegration (activity) of a radioactive substance?

किसी रेडियोधर्मी पदार्थ के रेडियोधर्मी विघटन की दर (सक्रियता) को मापने के लिए किस SI मात्रक का उपयोग किया जाता है?

**(1) Becquerel / बेकरेल ✔**

**(2)** Sievert / सीवर्ट

**(3)** Gray / ग्रे

**(4)** Dalton / डाल्टन

---

**Q.79** In November 2025, which company announced 'MAgnum', a hospital enablement solution designed to make the cashless experience seamless for members?

नवंबर 2025 में, किस कंपनी ने 'MAgnum' की घोषणा की, जो सदस्यों के लिए कैशलेस अनुभव को सुगम बनाने हेतु डिज़ाइन किया गया एक अस्पताल सक्षमता समाधान है?

**(1)** Thyrocare Technologies Limited / थायरोकेयर टेक्नोलॉजीज लिमिटेड

**(2)** Poly Medicure Limited / पॉली मेडिक्योर लिमिटेड

**(3)** Practo Technologies Private Limited / प्रैक्टो टेक्नोलॉजीज प्राइवेट लिमिटेड

**(4) Medi Assist Healthcare Services Limited / मेडी असिस्ट हेल्थकेयर सर्विसेज लिमिटेड ✔**

---

**Q.80** In November 2025, which state hosted the 5th Khelo India University Games (KIUG)?

नवंबर 2025 में, किस राज्य ने 5वें खेलो इंडिया यूनिवर्सिटी गेम्स (KIUG) की मेजबानी की?

**(1)** Maharashtra / महाराष्ट्र

**(2) Rajasthan / राजस्थान ✔**

**(3)** Gujarat / गुजरात

**(4)** Karnataka / कर्नाटक

---

## Arithmetical and Numerical Ability

**Q.81** A school has two sections of students. In Section A, students are arranged in rows of 12 each. In Section B, students are arranged in rows of 18 each. If both sections have the same total number of students, what is the minimum number of students in each section?

एक विद्यालय में विद्यार्थियों के दो वर्ग हैं। वर्ग A में, विद्यार्थियों को 12-12 की पंक्तियों में व्यवस्थित किया गया है। वर्ग B में, विद्यार्थियों को 18-18 की पंक्तियों में व्यवस्थित किया गया है। यदि दोनों वर्गों में विद्यार्थियों की कुल संख्या समान है, तो प्रत्येक वर्ग में विद्यार्थियों की न्यूनतम संख्या कितनी है?

**(1) 36 ✔**

**(2)** 144

**(3)** 108

**(4)** 6

---

**Q.82** Find the average of 326, 210, 133, 96, 87 and 57.

326, 210, 133, 96, 87 और 57 का औसत ज्ञात कीजिए।

**(1)** 152.5

**(2)** 153.5

**(3)** **151.5** ✔

**(4)** 150.5

---

**Q.83** A store listed a pair of socks at ₹60. After reducing the price by 20%, an additional 15% GST was applied. What is the final cost of the socks?

एक स्टोर ने मोज़ों की एक जोड़ी का सूचीबद्ध मूल्य ₹60 रखा। मूल्य में 20% की कमी करने के बाद, अतिरिक्त 15% GST लगाया गया। मोज़ों का अंतिम मूल्य क्या है?

**(1)** ₹59.50

**(2)** ₹51.20

**(3)** ₹55.80

**(4)** **₹55.20** ✔

---

**Q.84** Gopal has ₹1,323 with him. He divided it between his sons Akshay and Arjun and asked them to invest the money at 10% per annum, compounded annually. It was observed that Akshay and Arjun received the same amount after 15 years and 16 years, respectively. How much (in ₹) did Gopal give to Arjun?

गोपाल के पास ₹1,323 हैं। उसने यह राशि अपने पुत्रों अक्षय और अर्जुन के बीच बाँट दी और उन्हें यह राशि 10% वार्षिक चक्रवृद्धि ब्याज (वार्षिक रूप से संयोजित) पर निवेश करने को कहा। यह देखा गया कि अक्षय और अर्जुन को क्रमशः 15 वर्ष और 16 वर्ष बाद समान राशि प्राप्त हुई। गोपाल ने अर्जुन को कितनी राशि (₹ में) दी?

**(1)** **630** ✔

**(2)** 793

**(3)** 480

**(4)** 693

---

**Q.85** In what ratio must a grocer mix two varieties of wheat worth ₹95 per kg and ₹146 per kg so that if he sells the mixture at ₹149 per kg he may gain 49%?

एक पंसारी को ₹95 प्रति kg और ₹146 प्रति kg मूल्य वाली गेहूँ की दो किस्मों को किस अनुपात में मिलाना चाहिए ताकि मिश्रण को ₹149 प्रति kg पर बेचने पर उसे 49% का लाभ हो?

**(1)** **46:5** ✔

**(2)** 56:10

**(3)** 47:2

**(4)** 48:6

---

**Q.86** Given that $79^{0.19} = x$, $79^{0.45} = y$ and $x^z = y^2$, then the value of z is close to:

दिया गया है कि $79^{0.19} = x$, $79^{0.45} = y$ और $x^z = y^2$ है, तो z का मान लगभग है:

**(1)** 3.1

**(2)** 6.45

**(3)** **4.74** ✔

**(4)** 3.24

---

**Q.87** The following bar graph shows the number of vehicles sold by five different companies in the year 2020.

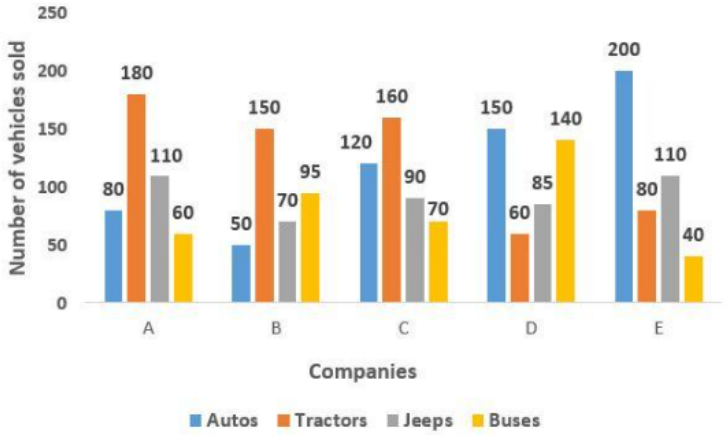


Find the ratio of the number of autos sold by Companies B and D together to the number of tractors sold by Companies E and D together.

निम्नलिखित दंड आलेख वर्ष 2020 में पाँच विभिन्न कंपनियों द्वारा बेचे गए वाहनों की संख्या दर्शाता है।
कंपनी B और D द्वारा मिलाकर बेचे गए ऑटो की संख्या का, कंपनी E और D द्वारा मिलाकर बेचे गए ट्रैक्टरों की संख्या से अनुपात ज्ञात कीजिए।

**(1)** 7 : 10
**(2)** 7 : 5
**(3)** **10 : 7** ✔
**(4)** 5 : 7

---

**Q.88** In what ratio should a 20% salt solution be mixed with a 50% salt solution to obtain a 30% salt solution?

30% नमक का घोल प्राप्त करने के लिए 20% नमक के घोल को 50% नमक के घोल के साथ किस अनुपात में मिलाया जाना चाहिए?

**(1)** 3 : 1
**(2)** 1 : 2
**(3)** **2 : 1** ✔
**(4)** 1 : 3

---

**Q.89** Simplify (8.5 × 3.2 ÷ 2.56 + 81 of 1/9 − 6/5).

(8.5 × 3.2 ÷ 2.56 + 81 का 1/9 − 6/5) को सरल कीजिए।

**(1)** **18.425** ✔
**(2)** 18.825
**(3)** 18.625
**(4)** 18.225

---

**Q.90** Veer had ₹1,323 with him. He divided it between his sons Nitin and Pravin and asked them to invest the money at 10% per annum, compounded annually. It was observed that Nitin and Pravin received the same amount after 16 years and 17 years, respectively. How much (in ₹) did Veer give to Pravin?

वीर के पास ₹1,323 थे। उसने यह राशि अपने पुत्रों नितिन और प्रवीण के बीच बाँट दी और उन्हें यह राशि 10% वार्षिक चक्रवृद्धि ब्याज (वार्षिक रूप से संयोजित) पर निवेश करने को कहा। यह देखा गया कि नितिन और प्रवीण को क्रमशः 16 वर्ष और 17 वर्ष बाद समान राशि प्राप्त हुई। वीर ने प्रवीण को कितनी राशि (₹ में) दी?

**(1)** **630** ✔
**(2)** 693
**(3)** 793
**(4)** 480

---

QuickSarkari.com | WhatsApp Channel | Telegram: t.me/quick_sarkari

**Q.91** Find the simple interest (in ₹) on ₹3000 as a sum borrowed at 7% per year rate of interest for 2 years.

₹3000 की उधार ली गई राशि पर 7% वार्षिक ब्याज दर से 2 वर्ष का साधारण ब्याज (₹ में) ज्ञात कीजिए।

**(1)** 360

**(2)** 380

**(3)** **420 ✔**

**(4)** 460

---

**Q.92** Simplify:

$\sqrt{2025} - 31^2 + 27^2$

सरल कीजिए:

$\sqrt{2025} - 31^2 + 27^2$

**(1)** −195

**(2)** −129

**(3)** 59

**(4)** **−187 ✔**

---

**Q.93** 360 grams of sugar solution has 20% of sugar in it. How much sugar should be added to make it 50% in the solution?

360 ग्राम चीनी के घोल में 20% चीनी है। घोल में चीनी 50% करने के लिए इसमें कितनी चीनी मिलानी चाहिए?

**(1)** 224 grams / 224 ग्राम

**(2)** 212 grams / 212 ग्राम

**(3)** 218 grams / 218 ग्राम

**(4)** **216 grams / 216 ग्राम ✔**

---

**Q.94** Simplify: (9/2 ÷ 5/2 × 3/2)/(3 ÷ 5/2 of 1/2)

सरल कीजिए: (9/2 ÷ 5/2 × 3/2)/(3 ÷ 5/2 का 1/2)

**(1)** 3.325

**(2)** **1.125 ✔**

**(3)** 4.425

**(4)** 2.225

---

**Q.95** Find the sum of the squares of the first 15 natural numbers.

प्रथम 15 प्राकृत संख्याओं के वर्गों का योग ज्ञात कीजिए।

**(1)** 1120

**(2)** 1420

**(3)** 1200

**(4)** **1240 ✔**

---

**Q.96** Which of the following numbers is divisible by 8?

निम्नलिखित में से कौन-सी संख्या 8 से विभाज्य है?

**(1)** **7192 ✔**

**(2)** 8436

**(3)** 5318

**(4)** 6524

---

**Q.97** The following charts represent the expenses (in percentage) done on different heads in the month of April and May by an employee, whereas X, Y, P, R, and M represent the school fee, savings, bills, grocery, and miscellaneous respectively.

Salary of April = ₹2,20,000 and Salary of May = ₹2,30,000

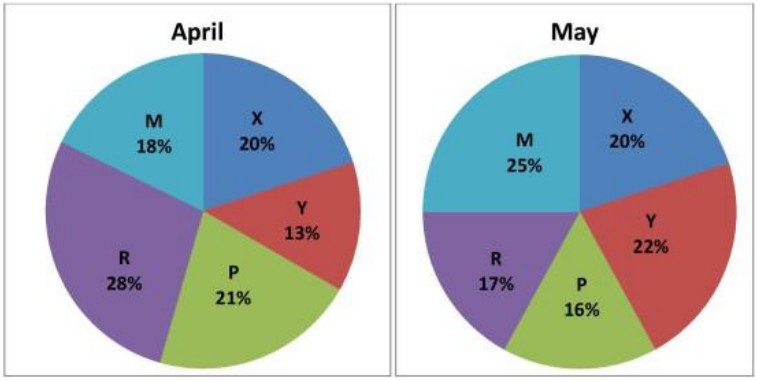


The ratio of the amount spent for savings in the month of April and the bills in the month of May is:

निम्नलिखित चार्ट एक कर्मचारी द्वारा अप्रैल और मई माह में विभिन्न मदों पर किए गए व्यय (प्रतिशत में) को दर्शाते हैं, जहाँ X, Y, P, R और M क्रमशः स्कूल शुल्क, बचत, बिल, किराना और विविध को दर्शाते हैं।

अप्रैल का वेतन = ₹2,20,000 और मई का वेतन = ₹2,30,000

अप्रैल माह में बचत पर खर्च की गई राशि और मई माह में बिलों पर खर्च की गई राशि का अनुपात है:

**(1) 143:184 ✔**

**(2)** 184:143

**(3)** 151:173

**(4)** 173:151

---

**Q.98** A worker can complete a task in 12 days, and another worker can complete the same task in 15 days. They work together for 4 days, and then the first worker leaves. How many more days will the second worker need to finish the remaining work?

एक कर्मचारी किसी कार्य को 12 दिनों में पूरा कर सकता है, और दूसरा कर्मचारी उसी कार्य को 15 दिनों में पूरा कर सकता है। वे 4 दिनों तक एक साथ कार्य करते हैं, और फिर पहला कर्मचारी कार्य छोड़ देता है। शेष कार्य को पूरा करने के लिए दूसरे कर्मचारी को और कितने दिनों की आवश्यकता होगी?

**(1)** 5 days / 5 दिन

**(2)** 7 days / 7 दिन

**(3) 6 days / 6 दिन ✔**

**(4)** 8 days / 8 दिन

---

**Q.99** In a test, B got 54 marks while A got 75 marks, out of 100 maximum marks. What percentage of A's marks was B's marks?

एक परीक्षा में, अधिकतम 100 अंकों में से B ने 54 अंक प्राप्त किए जबकि A ने 75 अंक प्राप्त किए। B के अंक, A के अंकों का कितना प्रतिशत थे?

**(1)** 138.89%

**(2)** 75%

**(3)** 111.25%

**(4) 72% ✔**

---

**Q.100** Two numbers have HCF = 3 and LCM = 1728. If one number is 27, find the other number.

दो संख्याओं का HCF = 3 और LCM = 1728 है। यदि एक संख्या 27 है, तो दूसरी संख्या ज्ञात कीजिए।

**(1) 192 ✔**

**(2)** 64

**(3)** 144

**(4)** 96

---

**Q.101** A conical tent has a radius of 7 m and a height of 24 m. What is the curved surface area of the tent? (Take π = 22/7 )

एक शंक्वाकार तंबू की त्रिज्या 7 m और ऊँचाई 24 m है। तंबू का वक्र पृष्ठीय क्षेत्रफल क्या है? (π = 22/7 )

**(1)** 600 $m^2$

**(2) 550 $m^2$ ✔**

**(3)** 660 $m^2$

**(4)** 528 $m^2$

---

**Q.102** The dimensions of a cuboid are 14cm × 7cm × 5cm. Find its total surface area (in $cm^2$).

एक घनाभ की विमाएँ 14cm × 7cm × 5cm हैं। इसका कुल पृष्ठीय क्षेत्रफल ($cm^2$ में) ज्ञात कीजिए।

**(1) 406 ✔**

**(2)** 412

**(3)** 408

**(4)** 410

---

**Q.103** A square field has its perimeter equal to 8√55 m. Find its area.

एक वर्गाकार मैदान का परिमाप 8√55 m है। इसका क्षेत्रफल ज्ञात कीजिए।

**(1) 220 $m^2$ ✔**

**(2)** 230 $m^2$

**(3)** 200 $m^2$

**(4)** 210 $m^2$

---

**Q.104** A cylindrical pipe has an inner radius of 7 cm and a length of 20 cm. Find the volume of water that can flow through the pipe in one fill. (Take π = 22/7 )

एक बेलनाकार पाइप की आंतरिक त्रिज्या 7 cm और लंबाई 20 cm है। एक बार भरने में पाइप से बहने वाले पानी का आयतन ज्ञात कीजिए। (π = 22/7 )

**(1)** 3200 $cm^3$

**(2)** 3140 $cm^3$

**(3)** 3300 $cm^3$

**(4) 3080 $cm^3$ ✔**

---

**Q.105** A shopkeeper buys a bag for ₹850. Due to slight damage, he sells it for ₹782. Find the percentage loss.

एक दुकानदार ₹850 में एक बैग खरीदता है। थोड़ी क्षति के कारण, वह इसे ₹782 में बेचता है। हानि प्रतिशत ज्ञात कीजिए।

**(1) 8% ✔**

**(2)** 7.2%

**(3)** 7.5%

**(4)** 6%

---

**Q.106** Two taps can fill a cistern in 2 hours and 32 hours respectively. A third tap can empty it in 2 hours. How long (in hours) will it take to fill three-fourth of the empty cistern, if all of them are opened together?

दो नल एक टंकी को क्रमशः 2 घंटे और 32 घंटे में भर सकते हैं। एक तीसरा नल इसे 2 घंटे में खाली कर सकता है। यदि तीनों नल एक साथ खोल दिए जाएँ, तो खाली टंकी का तीन-चौथाई भाग भरने में कितना समय (घंटों में) लगेगा?

**(1)** 48

**(2)** 96

**(3)** 72

**(4) 24 ✔**

---

**Q.107** A shopkeeper bought six identical mobile phones for ₹39,000, and sold two of the mobile phones for ₹26,000. Find the gain percentage on the sale of the two mobile phones.

एक दुकानदार ने छह एक जैसे मोबाइल फोन ₹39,000 में खरीदे, और उनमें से दो मोबाइल फोन ₹26,000 में बेच दिए। दो मोबाइल फोन की बिक्री पर लाभ प्रतिशत ज्ञात कीजिए।

**(1)** 99%

**(2)** 97%

**(3)** 103%

**(4) 100% ✔**

---

**Q.108** The length of each side of an equilateral triangle is X cm. If the length is increased by 2 cm, then the area increases by $\sqrt{3}(1 + \sqrt{3})$ $cm^2$, then the value of $X^2$ is:

एक समबाहु त्रिभुज की प्रत्येक भुजा की लंबाई X cm है। यदि लंबाई 2 cm बढ़ा दी जाए, तो क्षेत्रफल $\sqrt{3}(1 + \sqrt{3})$ $cm^2$ बढ़ जाता है, तो $X^2$ का मान है:

**(1) 3 ✔**

**(2)** 4

**(3)** 2

**(4)** 6

---

**Q.109** A cylinder has curved surface area equal to four times the area of its base. If the circumference of the base is 44 cm, find the height of the cylinder. (Use $\pi = 22/7$ )

एक बेलन का वक्र पृष्ठीय क्षेत्रफल उसके आधार के क्षेत्रफल के चार गुना के बराबर है। यदि आधार की परिधि 44 cm है, तो बेलन की ऊँचाई ज्ञात कीजिए। ($\pi = 22/7$ )

**(1) 14 cm ✔**

**(2)** 10.5 cm

**(3)** 17 cm

**(4)** 22 cm

---

**Q.110** The monthly income of A and B is in the ratio 5:7. If A's income is ₹25,000, what is B's income? And how much more does B earn than A?

A और B की मासिक आय का अनुपात 5:7 है। यदि A की आय ₹25,000 है, तो B की आय क्या है? और B, A से कितना अधिक कमाता है?

**(1)** ₹40,000; ₹15,000 more / ₹40,000; ₹15,000 अधिक

**(2)** ₹30,000; ₹5,000 more / ₹30,000; ₹5,000 अधिक

**(3) ₹35,000; ₹10,000 more / ₹35,000; ₹10,000 अधिक ✔**

**(4)** ₹45,000; ₹20,000 more / ₹45,000; ₹20,000 अधिक

---

**Q.111** Vinit and Druv invest ₹18,500 and ₹27,750, respectively, in a business. They share profits in the ratio of their investments. If the profit at the end of the year is ₹11,250, what is Druv's share?

विनीत और ध्रुव एक व्यवसाय में क्रमशः ₹18,500 और ₹27,750 का निवेश करते हैं। वे अपने निवेश के अनुपात में लाभ बाँटते हैं। यदि वर्ष के अंत में लाभ ₹11,250 है, तो ध्रुव का हिस्सा क्या है?

**(1) ₹6,750 ✔**

**(2)** ₹7,500

**(3)** ₹8,250

**(4)** ₹5,250

---

**Q.112** A and B together can do a piece of work in 18 days and A alone can do it in 26 days. In how much time could B alone do it?

A और B मिलकर किसी कार्य को 18 दिनों में कर सकते हैं और A अकेला उसे 26 दिनों में कर सकता है। B अकेला उसे कितने समय में कर सकता है?

**(1)** 54.5 days / 54.5 दिन

**(2)** 52.5 days / 52.5 दिन

**(3) 58.5 days / 58.5 दिन ✔**

**(4)** 56.5 days / 56.5 दिन

---

**Q.113** Divide ₹17,500 into three parts in such a way that half of the first part, one-fourth of the second part and one-eighth of the third part are equal. What is the value of the first part (in ₹)?

₹17,500 को तीन भागों में इस प्रकार विभाजित कीजिए कि पहले भाग का आधा, दूसरे भाग का एक-चौथाई और तीसरे भाग का आठवाँ भाग बराबर हों। पहले भाग का मान (₹ में) क्या है?

**(1)** 2300

**(2)** 2200

**(3) 2500 ✔**

**(4)** 2800

---

**Q.114** A cyclist covers a distance of 90 km in 3 hours. If he wants to cover 120 km at the same speed, how much time will he take?

एक साइकिल चालक 3 घंटे में 90 km की दूरी तय करता है। यदि वह उसी चाल से 120 km की दूरी तय करना चाहता है, तो उसे कितना समय लगेगा?

**(1)** 3.6 hours / 3.6 घंटे

**(2) 4 hours / 4 घंटे ✔**

**(3)** 4.5 hours / 4.5 घंटे

**(4)** 3.5 hours / 3.5 घंटे

---

**Q.115** A cube and a cuboid have equal volumes. If the edge of the cube is 8 cm, and the dimensions of the cuboid are 16 cm × 4 cm × h cm, then find the height (h) of the cuboid (in cm).

एक घन और एक घनाभ के आयतन बराबर हैं। यदि घन का किनारा 8 cm है, और घनाभ की विमाएँ 16 cm × 4 cm × h cm हैं, तो घनाभ की ऊँचाई (h) ज्ञात कीजिए (cm में)।

**(1)** 9

**(2)** 6

**(3)** 10

**(4) 8 ✔**

---

**Q.116** A shopkeeper marks an article at ₹90 and sells at a discount of 10%. He also gives a gift worth ₹5. If he still makes 25% profit, then the cost price is:

एक दुकानदार किसी वस्तु पर ₹90 मूल्य अंकित करता है और 10% की छूट पर बेचता है। वह ₹5 मूल्य का एक उपहार भी देता है। यदि फिर भी उसे 25% लाभ होता है, तो क्रय मूल्य है:

**(1)** ₹50.80

**(2)** ₹40.80

**(3) ₹60.80 ✔**

**(4)** ₹70.80

---

**Q.117** The list price of a refrigerator is ₹60800. It is sold to a retailer after two successive discounts of 25% and 10%. The retailer wants to earn a profit of 15% on his cost price after allowing a 40% discount (on its new list price) to the customer. At what price should he list the refrigerator?

एक रेफ्रिजरेटर का सूची मूल्य ₹60800 है। इसे 25% और 10% की दो क्रमिक छूटों के बाद एक खुदरा विक्रेता को बेचा जाता है। खुदरा विक्रेता ग्राहक को (इसके नए सूची मूल्य पर) 40% की छूट देने के बाद अपने क्रय मूल्य पर 15% का लाभ अर्जित करना चाहता है। उसे रेफ्रिजरेटर का सूची मूल्य कितना रखना चाहिए?

**(1)** ₹78841

**(2)** ₹78799

**(3) ₹78660 ✔**

**(4)** ₹78583

---

**Q.118** The third proportion of 12 and 6 is:

12 और 6 का तृतीयानुपाती है:

**(1)** 4

**(2)** 2

**(3) 3 ✔**

**(4)** 6

---

**Q.119** The radius of a right circular cone is 4.1 cm and slant height is 0.49 m, then what is its lateral surface area?
(Use π = 22/7)

एक लंब वृत्तीय शंकु की त्रिज्या 4.1 cm और तिर्यक ऊँचाई 0.49 m है, तो इसका पार्श्व पृष्ठीय क्षेत्रफल क्या है?
(π = 22/7 का प्रयोग कीजिए)

**(1) 631.4 $cm^2$ ✔**

**(2)** 531.4 $cm^2$

**(3)** 731.4 $cm^2$

**(4)** 431.4 $cm^2$

---

**Q.120** A boat travels 30 km downstream in 2 hours and the same distance upstream in 3 hours. If the boat then travels 48 km downstream and 48 km upstream, how much total time will it take?

एक नाव धारा के अनुकूल 30 km की दूरी 2 घंटे में और उतनी ही दूरी धारा के प्रतिकूल 3 घंटे में तय करती है। यदि नाव फिर धारा के अनुकूल 48 km और धारा के प्रतिकूल 48 km की यात्रा करती है, तो कुल कितना समय लगेगा?

**(1)** 10 hours / 10 घंटे

**(2) 8 hours / 8 घंटे ✔**

**(3)** 7 hours / 7 घंटे

**(4)** 9 hours / 9 घंटे

---

## English Language and Comprehension

**Q.121** In the following question, a statement divided into different segments is given.
Rearrange all the segments to form a coherent and meaningful statement.
A – across the sunny garden,
B – the children ran laughing,
C – chasing butterflies
D – under the old oak tree E – and playing happily

**(1)** C D E A B
**(2)** B E C A D
**(3)** **B C A E D ✔**
**(4)** B C E A D

---

**Q.122** Select the option that can be used as a one word substitute for the underlined words.
She is known as a/an person who is selfless and concerned for the welfare of others.

**(1)** **Altruist ✔**
**(2)** Humanist
**(3)** Egoist
**(4)** Philatelist

---

**Q.123** Complete the sentence with the most suitable pair of adjectives.
The committee's report was both _____ and _____, offering a detailed analysis supported by verifiable data.

**(1)** brief, misleading
**(2)** lengthy, biased
**(3)** vague, emotional
**(4)** **concise, objective ✔**

---

**Q.124** Choose the correct option to complete the sentence.
The _____ king was loved by his people, while the _____ ruler was feared by all.

**(1)** naive, astute
**(2)** **benevolent, tyrannical ✔**
**(3)** spineless, condescending
**(4)** servile, haughty

---

**Q.125** Identify the correct one-word substitution for the phrase below.
A person who believes that war and violence are unjustifiable.

**(1)** Visionary
**(2)** **Pacifist ✔**
**(3)** Revisionist
**(4)** Pragmatist

---

**Q.126** In the given question, a statement divided into different segments is given. Rearrange all the segments to form a coherent statement.
Among adolescents (O) / between prolonged screen exposure (P) / the report clearly established (Q) / and declining attention spans (R) / a direct link (S)

**(1)** S – Q – P – R – O
**(2)** Q – P – S – R – O
**(3) Q – S – P – R – O ✔**
**(4)** Q – S – R – P – O

---

**Q.127** A statement is divided into different segments. The first segment is fixed.
Rearrange the other segments to form a coherent and meaningful sentence.
The researcher documented
P. to ensure data accuracy
Q. throughout the experiment
R. each stage of the process
S. using advanced recording tools

**(1)** RSPQ
**(2)** RSQP
**(3)** SRQP
**(4) RQPS ✔**

---

**Q.128** A statement divided into different segments is given. Rearrange all the segments to form a coherent statement.
(A) to Fort Monroe came two decades ago / (B) a tide of liberation across half of Europe / (C) the flight of fugitive slaves / (D) when a minor East German bureaucratic foul-up loosed

**(1)** BCAD
**(2)** CBDA
**(3)** BDAC
**(4) CADB ✔**

---

**Q.129** Choose the correct option to complete the sentence.
She completed the marathon _____ suffering from severe leg cramps.

**(1)** because of
**(2) despite ✔**
**(3)** instead of
**(4)** according to

---

**Q.130** Complete the sentence with the most suitable pair of adjectives.
The climate in the desert is extremely _____; the days are scorching, while the nights can be surprisingly _____.

**(1)** tropical, warm
**(2) arid, chilly ✔**
**(3)** misty, breezy
**(4)** humid, balmy

---

**Q.131** Complete the following sentences by choosing the correct forms of the verbs.
The wildlife researchers _____ tracking the migration patterns of the birds for months and _____ recorded significant changes in their behavior.

**(1)** have / had
**(2)** had been / have
**(3)** has been / has
**(4) have been / have ✔**

---

**Q.132** Select the correct one-word substitute for the given expression.
A person who runs away or escapes from the law or danger

**(1)** Prisoner
**(2) Fugitive ✔**
**(3)** Refugee
**(4)** Vagabond

---

**Q.133** Choose the one-word substitution for the given phrase.
A person who studies ancient human history and prehistoric cultures through excavation.

**(1)** Anthropologist
**(2)** Geologist
**(3)** Paleontologist
**(4) Archaeologist ✔**

---

**Q.134** In the given question, a statement divided into different segments is given. The first segment is fixed. Rearrange the other segments to form a coherent and meaningful sentence.
The young artist painted / blending shades of blue and gold (P) / inspired by the evening sky (Q) / with delicate brush strokes (R) / to create a sense of calm (S)

**(1)** PRQS
**(2)** RQPS
**(3)** RSPQ
**(4) PRSQ ✔**

---

**Q.135** Which of the following sentences correctly uses the Future Continuous Tense?

**(1)** By this time tomorrow, I am travelling to Delhi.
**(2)** By this time tomorrow, I will travel to Delhi.
**(3)** By this time tomorrow, I will have travelled to Delhi.
**(4) By this time tomorrow, I will be travelling to Delhi. ✔**

---

**Q.136** Choose the option that best substitutes the underlined expression with one word, without changing the meaning.
His apology sounded insincere and lacking genuine feeling.

**(1)** artificial
**(2)** polite
**(3) hollow ✔**
**(4)** formal

---

**Q.137** Select the correct one-word substitution for the given description.
One who is indifferent to pleasure or pain.

**(1)** Pessimist
**(2)** Hermit
**(3)** Atheist
**(4) Stoic ✔**

---

**Q.138** Complete the following sentence by choosing the correct form of the verb.
The astronauts _____ the experiments on the ISS when the communication signal was restored.

**(1)** conducted
**(2)** have conducted
**(3)** will conduct
**(4) were conducting ✔**

---

**Q.139** A statement is divided into different segments. The first segment is fixed.
Rearrange the other segments to form a coherent and meaningful sentence.
The detective observed
P. every clue at the scene
Q. leading to the final breakthrough
R. with analytical precision
S. as the case grew more complex

**(1)** PSRQ
**(2)** PRQS
**(3)** PQRS
**(4) PRSQ ✔**

---

**Q.140** Choose the correct one-word substitution for the given phrase.
A person who studies the origin and history of words.

**(1)** Cryptographer
**(2)** Paleographer
**(3) Etymologist ✔**
**(4)** Philologist

---

**Q.141** Select the correct option to change the following sentence from active to passive: The chef cooks the meal.

**(1)** The meal was cook by the chef.
**(2)** The meal cooks the chef.
**(3) The meal is cooked by the chef. ✔**
**(4)** The meal cooked by the chef.

---

Quick Sarkari

**Q.142** Choose the correct direct speech form of the given sentence.
She told her team that they would need to revise the strategy immediately if the market indicators continued to fall.

**(1)** She said to her team, "You need to revise the strategy immediately if the market indicators continue to fall."
**(2) She said to her team, "You will need to revise the strategy immediately if the market indicators continue to fall." ✔**
**(3)** She told her team, "You needed to revise the strategy immediately if the market indicators continued to fall."
**(4)** She said to her team, "You will need to revised the strategy immediately if the market indicators continued to fall."

---

**Q.143** Identify the sentence that uses the correct active voice.

**(1)** The lion was shot by the hunter the following day.
**(2)** She was being given a book for her birthday.
**(3) Her grandmother looked after her. ✔**
**(4)** She have written a long letter to her friend.

---

**Q.144** Select the wrongly spelt word from the given alternatives.

**(1)** Discipline
**(2)** Hierarchy
**(3) Accomodate ✔**
**(4)** Perseverance

---

**Q.145** Select the option that rectifies the INCORRECTLY spelt word in the given sentence.
She wrote a sincere letter to acknowledge the assistence she received during the conference.

**(1)** conferance
**(2)** acknowladge
**(3)** sincire
**(4) assistance ✔**

---

**Q.146** Choose the correct option to complete the sentence:
They _____ a movie last night.

**(1) watched ✔**
**(2)** watches
**(3)** watch
**(4)** watching

---

**Q.147** Select the INCORRECTLY spelt word from the given sentence. If there are no error, select 'No correction required'.
His argument was both contradictory and illogical, leading to a lot of confusion among the audience.

**(1)** contradictory
**(2)** argument
**(3) No correction required ✔**
**(4)** illogical

---

**Q.148** Select the wrongly spelt word.

**(1)** Entrepreneur

**(2) Acommodating ✔**

**(3)** Lieutenant

**(4)** Rhythm

---

**Q.149** Identify the misspelt word in the given sentence.

The documentary highlighted the urgent need to conserve endengered species across fragile ecosystems.

**(1) endengered ✔**

**(2)** documentary

**(3)** highlighted

**(4)** ecosystems

---

**Q.150** Complete the following sentence by choosing the correct direct speech form.

Indirect: The chef said that he would prepare a special dessert for the foreign delegates that evening.

Direct: The chef said, "___ a special dessert for the foreign delegates ___ evening."

**(1) I will prepare / this ✔**

**(2)** I will have prepared / this

**(3)** I would prepare / that

**(4)** I am preparing / that

---

**Q.151**

Read the passage and answer the questions that follow.

In the modern world, digital devices dominate almost every waking hour of human life. From checking messages the moment we wake up to endlessly scrolling through social media feeds, our minds are rarely given the chance to rest or reflect. Constant connectivity has blurred the boundary between work, leisure, and personal space. A digital detox refers to the conscious decision to step away from screens for a limited period in order to restore balance and mental clarity. Numerous studies indicate that excessive screen time contributes to stress, anxiety, sleep disturbances, and a reduced attention span, particularly among young people. Disconnecting from digital devices, even briefly, allows individuals to regain focus, strengthen real-life relationships, and rediscover creativity. Importantly, the aim of a digital detox is not to reject technology altogether but to develop a healthier and more mindful relationship with it. In a world obsessed with notifications, alerts, and instant responses, true peace and self-awareness often begin when the screen finally goes dark.

Choose the most appropriate title for the passage.

**(1)** The Internet Never Sleeps

**(2)** Benefits of Online Gaming

**(3)** Living Without Gadgets

**(4) Finding Balance Through a Digital Detox ✔**

---

QuickSarkari.com | WhatsApp Channel | Telegram: t.me/quick_sarkari

**Q.152**

Read the passage and answer the questions that follow.
In the modern world, digital devices dominate almost every waking hour of human life. From checking messages the moment we wake up to endlessly scrolling through social media feeds, our minds are rarely given the chance to rest or reflect. Constant connectivity has blurred the boundary between work, leisure, and personal space. A digital detox refers to the conscious decision to step away from screens for a limited period in order to restore balance and mental clarity. Numerous studies indicate that excessive screen time contributes to stress, anxiety, sleep disturbances, and a reduced attention span, particularly among young people. Disconnecting from digital devices, even briefly, allows individuals to regain focus, strengthen real-life relationships, and rediscover creativity. Importantly, the aim of a digital detox is not to reject technology altogether but to develop a healthier and more mindful relationship with it. In a world obsessed with notifications, alerts, and instant responses, true peace and self-awareness often begin when the screen finally goes dark.

Identify the tone of the passage.

**(1)** Indifferent and humorous

**(2)** Angry and serious

**(3)** **Reflective and persuasive ✔**

**(4)** Sarcastic and unfriendly

**Q.153**

Read the passage and answer the questions that follow.
In the modern world, digital devices dominate almost every waking hour of human life. From checking messages the moment we wake up to endlessly scrolling through social media feeds, our minds are rarely given the chance to rest or reflect. Constant connectivity has blurred the boundary between work, leisure, and personal space. A digital detox refers to the conscious decision to step away from screens for a limited period in order to restore balance and mental clarity. Numerous studies indicate that excessive screen time contributes to stress, anxiety, sleep disturbances, and a reduced attention span, particularly among young people. Disconnecting from digital devices, even briefly, allows individuals to regain focus, strengthen real-life relationships, and rediscover creativity. Importantly, the aim of a digital detox is not to reject technology altogether but to develop a healthier and more mindful relationship with it. In a world obsessed with notifications, alerts, and instant responses, true peace and self-awareness often begin when the screen finally goes dark.

Select the sentence that correctly uses the word 'clarity'.

**(1)** The clarity was mesmerising.

**(2)** The clarity sang beautifully on stage.

**(3)** **Meditation helps the mind gain clarity. ✔**

**(4)** He tried to clarity his mistake.

QuickSarkari.com | WhatsApp Channel | Telegram: t.me/quick_sarkari

**Q.154**

Read the passage and answer the questions that follow.
In the modern world, digital devices dominate almost every waking hour of human life. From checking messages the moment we wake up to endlessly scrolling through social media feeds, our minds are rarely given the chance to rest or reflect. Constant connectivity has blurred the boundary between work, leisure, and personal space. A digital detox refers to the conscious decision to step away from screens for a limited period in order to restore balance and mental clarity. Numerous studies indicate that excessive screen time contributes to stress, anxiety, sleep disturbances, and a reduced attention span, particularly among young people. Disconnecting from digital devices, even briefly, allows individuals to regain focus, strengthen real-life relationships, and rediscover creativity. Importantly, the aim of a digital detox is not to reject technology altogether but to develop a healthier and more mindful relationship with it. In a world obsessed with notifications, alerts, and instant responses, true peace and self-awareness often begin when the screen finally goes dark.

According to the passage, what is the main purpose of a digital detox?

**(1)** To improve the functioning of digital devices

**(2)** To completely avoid the use of technology

**(3)** To increase one's time on social media

**(4)** **To restore balance and mental clarity by taking breaks from screens ✔**

**Q.155**

Read the passage and answer the questions that follow.
In the modern world, digital devices dominate almost every waking hour of human life. From checking messages the moment we wake up to endlessly scrolling through social media feeds, our minds are rarely given the chance to rest or reflect. Constant connectivity has blurred the boundary between work, leisure, and personal space. A digital detox refers to the conscious decision to step away from screens for a limited period in order to restore balance and mental clarity. Numerous studies indicate that excessive screen time contributes to stress, anxiety, sleep disturbances, and a reduced attention span, particularly among young people. Disconnecting from digital devices, even briefly, allows individuals to regain focus, strengthen real-life relationships, and rediscover creativity. Importantly, the aim of a digital detox is not to reject technology altogether but to develop a healthier and more mindful relationship with it. In a world obsessed with notifications, alerts, and instant responses, true peace and self-awareness often begin when the screen finally goes dark.

Which of these is a real-life example of the 'digital detox' described in the passage?

**(1)** Keeping your laptop on all night

**(2)** Messaging friends while doing homework

**(3)** Buying a newer, faster smartphone

**(4)** **Turning off your phone during a hike ✔**

QuickSarkari.com | WhatsApp Channel | Telegram: t.me/quick_sarkari

**Q.156**

Read the passage and answer the questions that follow.
In India, the road test for getting a driving licence examines whether the person is able to handle a vehicle of certain specification, largely a skill test, rather than one of his knowledge and execution of safe driving practices. Most accidents are collisions from the back — whereas exemplar driving tests in other countries filter out tailgating tendencies and arbitrary lane changing. The system of certifying and monitoring drivers and vehicles is broken and corrupt. The SaveLIFE Foundation advocates License Seva so that they are transparent, digitised, and ensure good driver skills and safety awareness. One in five accidents are head-on collisions, which have happened even on four-lane highways, indicating wrong-side driving and the state of road dividers. There are potholes, dangerous curves, drainage systems, bridge parapets and concrete objects, but no crash barriers or energy absorbers. Collision-risk warning devices are relatively inexpensive and can be mandated on commercial vehicles.

Identify the central idea conveyed by the passage.

**(1)** The benefits of modern highways
**(2)** The causes of traffic jams in cities
**(3)** **The flaws in India's driving licence system and road safety measures ✔**
**(4)** The poor condition of public transport

**Q.157**

Read the passage and answer the questions that follow.
In India, the road test for getting a driving licence examines whether the person is able to handle a vehicle of certain specification, largely a skill test, rather than one of his knowledge and execution of safe driving practices. Most accidents are collisions from the back — whereas exemplar driving tests in other countries filter out tailgating tendencies and arbitrary lane changing. The system of certifying and monitoring drivers and vehicles is broken and corrupt. The SaveLIFE Foundation advocates License Seva so that they are transparent, digitised, and ensure good driver skills and safety awareness. One in five accidents are head-on collisions, which have happened even on four-lane highways, indicating wrong-side driving and the state of road dividers. There are potholes, dangerous curves, drainage systems, bridge parapets and concrete objects, but no crash barriers or energy absorbers. Collision-risk warning devices are relatively inexpensive and can be mandated on commercial vehicles.

Choose the statement that presents a fact mentioned in the passage.

**(1)** Collision-risk warning devices are costly and rare.
**(2)** **One in five accidents in India are head-on collisions. ✔**
**(3)** India has the safest driving test system in the world.
**(4)** Most highways in India have perfect crash barriers.

QuickSarkari.com | WhatsApp Channel | Telegram: t.me/quick_sarkari

**Q.158**

Read the passage and answer the questions that follow.
In India, the road test for getting a driving licence examines whether the person is able to handle a vehicle of certain specification, largely a skill test, rather than one of his knowledge and execution of safe driving practices. Most accidents are collisions from the back — whereas exemplar driving tests in other countries filter out tailgating tendencies and arbitrary lane changing. The system of certifying and monitoring drivers and vehicles is broken and corrupt. The SaveLIFE Foundation advocates License Seva so that they are transparent, digitised, and ensure good driver skills and safety awareness. One in five accidents are head-on collisions, which have happened even on four-lane highways, indicating wrong-side driving and the state of road dividers. There are potholes, dangerous curves, drainage systems, bridge parapets and concrete objects, but no crash barriers or energy absorbers. Collision-risk warning devices are relatively inexpensive and can be mandated on commercial vehicles.

Identify the tone or attitude of the writer in the passage.

**(1)** Humorous and satirical
**(2)** Optimistic and bright
**(3)** Indifferent and neutral
**(4) Critical and concerned ✔**

**Q.159**

Read the passage and answer the questions that follow.
In India, the road test for getting a driving licence examines whether the person is able to handle a vehicle of certain specification, largely a skill test, rather than one of his knowledge and execution of safe driving practices. Most accidents are collisions from the back — whereas exemplar driving tests in other countries filter out tailgating tendencies and arbitrary lane changing. The system of certifying and monitoring drivers and vehicles is broken and corrupt. The SaveLIFE Foundation advocates License Seva so that they are transparent, digitised, and ensure good driver skills and safety awareness. One in five accidents are head-on collisions, which have happened even on four-lane highways, indicating wrong-side driving and the state of road dividers. There are potholes, dangerous curves, drainage systems, bridge parapets and concrete objects, but no crash barriers or energy absorbers. Collision-risk warning devices are relatively inexpensive and can be mandated on commercial vehicles.

Choose the antonym of the word 'transparent' as used in the passage.

**(1) Opaque ✔**
**(2)** Clear
**(3)** Visible
**(4)** Honest

QuickSarkari.com | WhatsApp Channel | Telegram: t.me/quick_sarkari

**Q.160**

Read the passage and answer the questions that follow.
In India, the road test for getting a driving licence examines whether the person is able to handle a vehicle of certain specification, largely a skill test, rather than one of his knowledge and execution of safe driving practices. Most accidents are collisions from the back — whereas exemplar driving tests in other countries filter out tailgating tendencies and arbitrary lane changing. The system of certifying and monitoring drivers and vehicles is broken and corrupt. The SaveLIFE Foundation advocates License Seva so that they are transparent, digitised, and ensure good driver skills and safety awareness. One in five accidents are head-on collisions, which have happened even on four-lane highways, indicating wrong-side driving and the state of road dividers. There are potholes, dangerous curves, drainage systems, bridge parapets and concrete objects, but no crash barriers or energy absorbers. Collision-risk warning devices are relatively inexpensive and can be mandated on commercial vehicles.

Select the inference that can be drawn from the passage.

**(1)** The licence system effectively prevents rash driving.
**(2)** The system is fair and transparent.
**(3)** The driving test in India focuses more on safety awareness than on driving skill.
**(4) The present driving licence system in India neglects essential safe driving practices. ✔**

## Hindi Language and Comprehension

**Q.161** .....तुम फिर से आ गए ?
उपरोक्त वाक्य में रिक्त स्थान की पूर्ति के लिए उचित कारक शब्द का चयन करें –

**(1)** राधा
**(2)** साहब
**(3)** लड़के
**(4) अरे! ✔**

**Q.162** नीचे दिए गये मुहावरे का सही अर्थ चुनें- 'अभयदान देना'

**(1)** किसी से न डरना
**(2)** किसी को डराना
**(3)** दान में अन्न देना
**(4) भय से बचाने का वचन देना ✔**

**Q.163** गीता _____पौधों में पानी डाला।
उपरोक्त वाक्य में रिक्त स्थान की पूर्ति के लिए उचित कारक शब्द का चयन करें-

**(1) ने ✔**
**(2)** के लिए
**(3)** के
**(4)** पर

**Q.164** दिए गए विकल्पों में से उचित कारक द्वारा वाक्य पूर्ण करें।
वे भृगु ____ वंशज हैं।

**(1) के ✔**
**(2)** से
**(3)** की
**(4)** का

**Q.165** संख्यावाचक विशेषण का प्रयोग करते हुए वाक्य पूर्ण करें - .....बन्दर कहाँ गया

**(1)** छोटा
**(2)** मोटा
**(3)** काला
**(4) तीसरा ✔**

**Q.166** निम्नलिखित अव्यवस्थित क्रम वाले वाक्य-खण्डों को क,ख,ग,घ की संज्ञा दी गई है। इन्हें ध्यान से पढ़कर,दिए गए विकल्पों में से उचित वाक्य क्रम वाला विकल्प चुनिए – क - हमें स्वस्थ और खुशहाल जीवन जीने के लिएख -पेड़ लगाकर, जल संसाधनों का संरक्षण करग -तथा ऊर्जा की बचत करघ –पर्यावरण को संरक्षित रखना चाहिए

**(1)** घ ग क ख
**(2)** ख क घ ग
**(3) क ख ग घ ✔**
**(4)** ग क ख घ

**Q.167** नीचे दिए गए वाक्यांश के लिए चार विकल्प में से किसी एक सार्थक शब्द का चुनाव कीजिए।
मांस से युक्त

**(1)** सर्वज्ञ
**(2)** सर्वहारा
**(3) सामिष ✔**
**(4)** समवयस्क

**Q.168** निम्नलिखित मुहावरे का सही अर्थ पहचानें।
अक्ल ठिकाने ला देना

**(1)** सतर्क कर देना
**(2)** डांट देना
**(3)** डरा देना
**(4) समझा देना ✔**

**Q.169** 'तेल देखो, तेल की धार देखो' लोकोक्ति का क्या अर्थ है?

**(1)** सदा लक्ष्य प्राप्ति की चिन्ता करनी चाहिए
**(2)** प्रतिष्ठा के अनुरूप काम करना चाहिए
**(3)** मूर्खतापूर्ण कार्य करना
**(4) बदलती परिस्थितियों पर नज़र रखना ✔**

**Q.170** 'जो अवश्य होने वाला हो' वाक्यांश के लिए सार्थक शब्द चयनित कीजिये-

**(1) अवश्यंभावी ✔**
**(2)** प्रारब्ध
**(3)** आवश्यक
**(4)** निश्चित

**Q.171** ' उपकार को मानने वाला' वाक्यांश के लिए एक सार्थक शब्द होगा –

**(1)** कातर

**(2)** **कृतज्ञ ✔**

**(3)** कृतघ्न

**(4)** कनिष्ठ

---

**Q.172** निम्नलिखित वाक्य के उचित क्रम का निर्धारण कीजिए- 'से आया निबंध शब्द हिन्दी में संस्कृत है।'

**(1)** हिन्दी में निबंध शब्द से आया है।संस्कृत

**(2)** में संस्कृत से आया है। निबंध शब्द हिन्दी

**(3)** **निबंध शब्द हिन्दी में संस्कृत से आया है। ✔**

**(4)** शब्द हिन्दी निबंध में संस्कृत से आया है।

---

**Q.173** रेखांकित वाक्यांश के लिए सार्थक शब्द क्या है?
किसी पर विजय प्राप्त करने की इच्छा रखने वाला व्यक्ति अक्सर अहंकार में डूब जाता है।

**(1)** मेधावी

**(2)** संचित

**(3)** **जिगीषु ✔**

**(4)** मितभाषी

---

**Q.174** इस घर .....बहुत सामान है ।
उपरोक्त वाक्य में रिक्त स्थान की पूर्ति के लिए उचित कारक शब्द का चयन करें –

**(1)** **में ✔**

**(2)** को

**(3)** की

**(4)** का

---

**Q.175** निम्नलिखित लोकोक्ति का अर्थ बताएं - 'अंधे के आगे रोना, अपने दीदा खोना'

**(1)** **ना समझ को समझाने का व्यर्थ प्रयास करना ✔**

**(2)** कार्य करने न करने दोनों में खराबी

**(3)** ढोंगी आदमी चापलूस हुआ करता है

**(4)** अपात्र को कोई बहुमूल्य चीज मिल जाना

---

**Q.176** नीचे दिए गए मुहावरे का चार विकल्पों में से कोई एक सही विकल्प चुनकर अर्थ स्पष्ट कीजिए।
चूड़ियाँ पहनना -

**(1)** **कायर होना ✔**

**(2)** धोखा देना

**(3)** बहुत काम होना

**(4)** जोश आना

---

**Q.177** दिए गए वाक्य में उचित सम्प्रदान कारक का चयन करके रिक्त स्थान की पूर्ति करें- शिक्षक ने विद्यार्थियों के उज्ज्वल भविष्य -------- मार्गदर्शन दिया।

**(1)** को

**(2)** **के लिए ✔**

**(3)** ने

**(4)** में

---

**Q.178** निम्नलिखित में से एक मुहावरा-युग्म सुमेलित नहीं है-

**(1)** ऊँची फेंकना-बहुत अधिक गप मारना

**(2) कमर कसना –हार स्वीकार का लेना ✔**

**(3)** एक मुँह दो बात-बात पर टिका न रहना

**(4)** काठ का उल्लू-महामूर्ख

---

**Q.179** प्रविशेषण का प्रयोग किस वाक्य में हुआ है ?

**(1)** चिड़िया बहुत बोलती हैं |

**(2) वह बहुत अच्छी लड़की है | ✔**

**(3)** उसने सुंदर-सुंदर चित्र बनाया |

**(4)** वह सुंदर चित्र बनाती है |

---

**Q.180** 'जो हाथ से लिखा गया हो' वाक्यांश के लिए सार्थक शब्द होगा -

**(1) हस्तलिखित ✔**

**(2)** हस्तांतरित

**(3)** हस्तामलक

**(4)** हास्यास्पद

---

**Q.181** निम्नलिखित वाक्य में 'स्वकीय' के लिए उचित विलोम शब्द की पूर्ति कीजिए- स्वकीय व्यक्ति आत्मीय होता है, जबकि _____पराया होता है।

**(1)** पारिवारिक

**(2) परकीया ✔**

**(3)** सगा

**(4)** अपनाया

---

**Q.182** दिये गये वाक्य के किस भाग में त्रुटि है?
चाँदनी रात में नर्मदा नदी का आर्कषण अद्भुत होता है।

**(1)** नर्मदा नदी का

**(2)** चाँदनी रात में

**(3)** अद्भुत होता है।

**(4) आर्कषण ✔**

---

**Q.183** निम्नलिखित में से सही वर्तनी वाला वाक्य चुनिए-

**(1) कठिन समय में धैर्य आवश्यक है। ✔**

**(2)** कठिन समय में धैर आवश्यक है।

**(3)** कठिन समय में धैर्य्य आवश्यक है।

**(4)** कठिन समय में धर्य आवश्यक है।

---

**Q.184** दिये गए वाक्य के रेखांकित शब्द का विलोम शब्द चुनिए – कार्यशाला में नए कर्मचारियों के लिए अग्रज अधिकारी ने अपने अनुभव साझा किए।

**(1)** अजर

**(2) अनुज ✔**

**(3)** अज

**(4)** दनुज

---

**Q.185** निम्नलिखित वाक्यों में से किन्हीं तीन वाक्य में वर्तनी संबंधी अशुद्धिहै,जबकि एक वाक्य शुद्ध है ।
दिए गए विकल्पों में से शुद्ध वर्तनी वाले वाक्य का चयन कीजिए-

**(1) विभीषण राम का बहुत बड़ा भक्त था | ✔**
**(2)** विभीषन राम का बहुत बड़ा भक्त था |
**(3)** विभीशण राम का बहुत बड़ा भक्त था |
**(4)** बिभीषण राम का बहुत बड़ा भक्त था |

---

**Q.186** निम्नलिखित में से किस वाक्य में 'मिलन' शब्द के पर्याय का प्रयोग नहीं हुआ है?

**(1)** कल उसकी अपने पुराने मित्र से मुलाकात हुई।
**(2) बसंत हर किसी का मन मोह लेती है। ✔**
**(3)** आज हमारा यहाँ मिल जाना भी एक शुभ संयोग है।
**(4)** दोनों नदियों का संगम बड़ा सुंदर दृश्य था।

---

**Q.187** निम्नलिखित वाक्य के रेखांकित शब्द का विलोम बताएं - 'वीरेश बिजली विभाग का अधिकारी है।'

**(1)** प्रमुख
**(2)** अधिष्ठित
**(3) अनधिकारी ✔**
**(4)** मुख्य

---

**Q.188** निम्नलिखित वाक्य के रेखांकित शब्द का विलोम बताएं - 'आज घर की मरम्मत का कार्य पूर्ण हो गया है।'

**(1) अपूर्ण ✔**
**(2)** पूरित
**(3)** पूर्णता
**(4)** पूरा

---

**Q.189** वर्तनी की दृष्टि से शुद्ध वाक्य कौन-सा है?

**(1)** वह साधु सबमें सामान भाव रखता है।
**(2) मेरे घर के निकट मंदिर है। ✔**
**(3)** उसके मन में दवंद्व चल रहा था।
**(4)** विद्यार्थी आपने गुरु के दर्शनाभिलाशी हैं।

---

**Q.190** निम्नलिखित वाक्य में 'स्वाभिमान' के लिए उचित विलोम शब्द की पूर्ति कीजिए- स्वाभिमान रखने वाला व्यक्ति किसी का_____ सह नहीं सकता।

**(1)** असहमति
**(2)** हीनभाव
**(3)** विरोध
**(4) अपमान ✔**

---

**Q.191**

दिए गए गद्यांश के आधार पर पूछे गए प्रश्नों का उत्तर दीजिए- पैशन (Passion) एक प्रकार का तीव्र लगाव है। इसे दीवानगी, आवेगमय लगाव, प्रबल लगाव आदि भी कहा जा सकता है।
माना जाता है कि जीवन अच्छी तरह जीने या कोई बड़ा काम सफलतापूर्वक संपन्न करने के लिए 'पैशन' का होना जरूरी है।
कोई व्यक्ति बस जी लेता है, कर्तव्य निभा लेता है या किसी के साथ संबंध निर्वाह कर लेता है। जबकि कोई अपने कुछ खास काम या रिश्तों के प्रति तीव्र लगाव से भरा होता है। लगाव-वेग से भरा व्यक्ति अच्छे लोगों को आकर्षित करता है, क्योंकि वह गहरी उत्प्रेरणाओं से भरा होता है। वह दत्तचित्त होकर यात्रा में सुंदर दृश्य देखता है, अपनी रुचि का काम बड़ी सुंदरता से करता है, किसी रिश्ते की गहराई को समझता है। उसका पैशन लोगों के मन को छू जाता है, क्योंकि वह निष्ठा से भरा होता है।
माखनलाल चतुर्वेदी का शहीदों से, महादेवी वर्मा का पशु-पक्षियों से, पंत का पहाड़ों से, अज्ञेय का ऐतिहासिक जगहों से और नागार्जुन का युवाओं से तीव्र लगाव था।

'पैशन' शब्द का अर्थ गद्यांश के अनुसार क्या है?

**(1)** मनोरंजन
**(2)** नफरत
**(3)** **तीव्र या प्रबल लगाव ✔**
**(4)** कर्तव्य

**Q.192**

दिए गए गद्यांश के आधार पर पूछे गए प्रश्नों का उत्तर दीजिए- पैशन (Passion) एक प्रकार का तीव्र लगाव है। इसे दीवानगी, आवेगमय लगाव, प्रबल लगाव आदि भी कहा जा सकता है।
माना जाता है कि जीवन अच्छी तरह जीने या कोई बड़ा काम सफलतापूर्वक संपन्न करने के लिए 'पैशन' का होना जरूरी है।
कोई व्यक्ति बस जी लेता है, कर्तव्य निभा लेता है या किसी के साथ संबंध निर्वाह कर लेता है। जबकि कोई अपने कुछ खास काम या रिश्तों के प्रति तीव्र लगाव से भरा होता है। लगाव-वेग से भरा व्यक्ति अच्छे लोगों को आकर्षित करता है, क्योंकि वह गहरी उत्प्रेरणाओं से भरा होता है। वह दत्तचित्त होकर यात्रा में सुंदर दृश्य देखता है, अपनी रुचि का काम बड़ी सुंदरता से करता है, किसी रिश्ते की गहराई को समझता है। उसका पैशन लोगों के मन को छू जाता है, क्योंकि वह निष्ठा से भरा होता है।
माखनलाल चतुर्वेदी का शहीदों से, महादेवी वर्मा का पशु-पक्षियों से, पंत का पहाड़ों से, अज्ञेय का ऐतिहासिक जगहों से और नागार्जुन का युवाओं से तीव्र लगाव था।

गद्यांश के अनुसार कौन 'तीव्र लगाव' से भरे थे?

**(1)** केवल महादेवी वर्मा और अज्ञेय
**(2)** केवल पंत
**(3)** केवल नागार्जुन
**(4)** **माखनलाल चतुर्वेदी, महादेवी वर्मा, पंत, अज्ञेय और नागार्जुन ✔**

**Q.193**

दिए गए गद्यांश के आधार पर पूछे गए प्रश्नों का उत्तर दीजिए- पैशन (Passion) एक प्रकार का तीव्र लगाव है। इसे दीवानगी, आवेगमय लगाव, प्रबल लगाव आदि भी कहा जा सकता है।
माना जाता है कि जीवन अच्छी तरह जीने या कोई बड़ा काम सफलतापूर्वक संपन्न करने के लिए 'पैशन' का होना जरूरी है।
कोई व्यक्ति बस जी लेता है, कर्तव्य निभा लेता है या किसी के साथ संबंध निर्वाह कर लेता है। जबकि कोई अपने कुछ खास काम या रिश्तों के प्रति तीव्र लगाव से भरा होता है। लगाव-वेग से भरा व्यक्ति अच्छे लोगों को आकर्षित करता है, क्योंकि वह गहरी उत्प्रेरणाओं से भरा होता है। वह दत्तचित्त होकर यात्रा में सुंदर दृश्य देखता है, अपनी रुचि का काम बड़ी सुंदरता से करता है, किसी रिश्ते की गहराई को समझता है। उसका पैशन लोगों के मन को छू जाता है, क्योंकि वह निष्ठा से भरा होता है।
माखनलाल चतुर्वेदी का शहीदों से, महादेवी वर्मा का पशु-पक्षियों से, पंत का पहाड़ों से, अज्ञेय का ऐतिहासिक जगहों से और नागार्जुन का युवाओं से तीव्र लगाव था।

प्रस्तुत गद्यांश का केंद्रीय भाव क्या है?

**(1)** जीवन में कर्तव्य निभाना ही सबसे बड़ा लक्ष्य है।
**(2)** सफलता केवल मेहनत से मिलती है।
**(3) जीवन को सार्थक बनाने के लिए 'पैशन' यानी प्रबल लगाव आवश्यक है। ✔**
**(4)** रिश्तों में दूरी बनाए रखना ही उचित है।

**Q.194**

दिए गए गद्यांश के आधार पर पूछे गए प्रश्नों का उत्तर दीजिए- पैशन (Passion) एक प्रकार का तीव्र लगाव है। इसे दीवानगी, आवेगमय लगाव, प्रबल लगाव आदि भी कहा जा सकता है।
माना जाता है कि जीवन अच्छी तरह जीने या कोई बड़ा काम सफलतापूर्वक संपन्न करने के लिए 'पैशन' का होना जरूरी है।
कोई व्यक्ति बस जी लेता है, कर्तव्य निभा लेता है या किसी के साथ संबंध निर्वाह कर लेता है। जबकि कोई अपने कुछ खास काम या रिश्तों के प्रति तीव्र लगाव से भरा होता है। लगाव-वेग से भरा व्यक्ति अच्छे लोगों को आकर्षित करता है, क्योंकि वह गहरी उत्प्रेरणाओं से भरा होता है। वह दत्तचित्त होकर यात्रा में सुंदर दृश्य देखता है, अपनी रुचि का काम बड़ी सुंदरता से करता है, किसी रिश्ते की गहराई को समझता है। उसका पैशन लोगों के मन को छू जाता है, क्योंकि वह निष्ठा से भरा होता है।
माखनलाल चतुर्वेदी का शहीदों से, महादेवी वर्मा का पशु-पक्षियों से, पंत का पहाड़ों से, अज्ञेय का ऐतिहासिक जगहों से और नागार्जुन का युवाओं से तीव्र लगाव था।

प्रस्तुत गद्यांश का उचित शीर्षक क्या होगा?

**(1)** लगाव का महत्व
**(2)** जीवन की कठिनाइयाँ
**(3) पैशन : जीवन का प्रेरक बल ✔**
**(4)** संबंधों की जटिलता

**Q.195**

दिए गए गद्यांश के आधार पर पूछे गए प्रश्नों का उत्तर दीजिए- पैशन (Passion) एक प्रकार का तीव्र लगाव है। इसे दीवानगी, आवेगमय लगाव, प्रबल लगाव आदि भी कहा जा सकता है।
माना जाता है कि जीवन अच्छी तरह जीने या कोई बड़ा काम सफलतापूर्वक संपन्न करने के लिए 'पैशन' का होना जरूरी है।
कोई व्यक्ति बस जी लेता है, कर्तव्य निभा लेता है या किसी के साथ संबंध निर्वाह कर लेता है। जबकि कोई अपने कुछ खास काम या रिश्तों के प्रति तीव्र लगाव से भरा होता है। लगाव-वेग से भरा व्यक्ति अच्छे लोगों को आकर्षित करता है, क्योंकि वह गहरी उत्प्रेरणाओं से भरा होता है। वह दत्तचित्त होकर यात्रा में सुंदर दृश्य देखता है, अपनी रुचि का काम बड़ी सुंदरता से करता है, किसी रिश्ते की गहराई को समझता है। उसका पैशन लोगों के मन को छू जाता है, क्योंकि वह निष्ठा से भरा होता है।
माखनलाल चतुर्वेदी का शहीदों से, महादेवी वर्मा का पशु-पक्षियों से, पंत का पहाड़ों से, अज्ञेय का ऐतिहासिक जगहों से और नागार्जुन का युवाओं से तीव्र लगाव था।

प्रस्तुत गद्यांश का वास्तविक जीवन से क्या संबंध है?

**(1)** वास्तविक जीवन में भावनाओं का कोई महत्व नहीं होता।
**(2)** वास्तविक जीवन में लगाव से व्यक्ति कमजोर बनता है।
**(3)** **वास्तविक जीवन में किसी काम या रिश्ते के प्रति लगाव व्यक्ति को प्रेरित करता है। ✔**
**(4)** वास्तविक जीवन में केवल धन से सफलता मिलती है।

**Q.196**

निम्नलिखित गद्यांश के आधार पर प्रश्नों के उत्तर दें - भारतीय अंतरिक्ष अनुसंधान संगठन, जिसे आमतौर पर 'इसरो' के नाम से जाना जाता है, यह भारत की प्रमुख राष्ट्रीय अंतरिक्ष एजेंसी है। भारत सरकार अंतरिक्ष के क्षेत्र में प्रमुख अनुसंधान, विकास और अन्वेषण गतिविधियों को निर्देशित करती है। इसरो ने अपने प्रयासों से अंतरिक्ष क्षेत्र में भारत को महत्वपूर्ण स्थान दिलाया और कई महत्त्वपूर्ण प्रौद्योगिकी और अनुसंधान क्षेत्र में प्रगति की इसरो की उपलब्धियाँ भारतीय अंतरिक्ष क्षेत्र के विकास में महत्त्वपूर्ण योगदान दर्शाती हैं। इसरो की स्थापना वर्ष 1969 में अंतरिक्ष प्रौद्योगिकी के विकास को बढ़ावा देने के उद्देश्य से की गई थी। इसका मुख्य उद्देश्य देश के सामाजिक आर्थिक विकास के लिए अंतरिक्ष संबंधित कार्यों का प्रबंधन करना है। इसरो कई विभिन्न क्षेत्रों में महत्त्वपूर्ण भूमिका निभाता है;जैसे संचार, मौसम विज्ञान,रिमोट सेंसिंग, नेविगेशन और वैज्ञानिक अनुसंधान आदि इसका मुख्य लक्ष्य विभिन्न राष्ट्रीय आवश्यकताओं को पूरा करने के लिए अंतरिक्ष प्रौद्योगिकी को आगे बढ़ाना और उसका उपयोग करना है।

गद्यांश का शीर्षक बताएं -

**(1)** प्रौद्योगिकी
**(2)** अंतरिक्ष
**(3)** **इसरो ✔**
**(4)** अनुसंधान

**Q.197**

निम्नलिखित गद्यांश के आधार पर प्रश्नों के उत्तर दें - भारतीय अंतरिक्ष अनुसंधान संगठन, जिसे आमतौर पर 'इसरो' के नाम से जाना जाता है, यह भारत की प्रमुख राष्ट्रीय अंतरिक्ष एजेंसी है। भारत सरकार अंतरिक्ष के क्षेत्र में प्रमुख अनुसंधान, विकास और अन्वेषण गतिविधियों को निर्देशित करती है। इसरो ने अपने प्रयासों से अंतरिक्ष क्षेत्र में भारत को महत्वपूर्ण स्थान दिलाया और कई महत्त्वपूर्ण प्रौद्योगिकी और अनुसंधान क्षेत्र में प्रगति की इसरो की उपलब्धियाँ भारतीय अंतरिक्ष क्षेत्र के विकास में महत्त्वपूर्ण योगदान दर्शाती हैं। इसरो की स्थापना वर्ष 1969 में अंतरिक्ष प्रौद्योगिकी के विकास को बढ़ावा देने के उद्देश्य से की गई थी। इसका मुख्य उद्देश्य देश के सामाजिक आर्थिक विकास के लिए अंतरिक्ष संबंधित कार्यों का प्रबंधन करना है। इसरो कई विभिन्न क्षेत्रों में महत्त्वपूर्ण भूमिका निभाता है;जैसे संचार, मौसम विज्ञान,रिमोट सेंसिंग, नेविगेशन और वैज्ञानिक अनुसंधान आदि इसका मुख्य लक्ष्य विभिन्न राष्ट्रीय आवश्यकताओं को पूरा करने के लिए अंतरिक्ष प्रौद्योगिकी को आगे बढ़ाना और उसका उपयोग करना है।

इसरो कहाँ की प्रमुख एजेंसी है?

**(1)** अमेरिका

**(2)** जापान

**(3)** **भारत** ✔

**(4)** रूस

**Q.198**

निम्नलिखित गद्यांश के आधार पर प्रश्नों के उत्तर दें - भारतीय अंतरिक्ष अनुसंधान संगठन, जिसे आमतौर पर 'इसरो' के नाम से जाना जाता है, यह भारत की प्रमुख राष्ट्रीय अंतरिक्ष एजेंसी है। भारत सरकार अंतरिक्ष के क्षेत्र में प्रमुख अनुसंधान, विकास और अन्वेषण गतिविधियों को निर्देशित करती है। इसरो ने अपने प्रयासों से अंतरिक्ष क्षेत्र में भारत को महत्वपूर्ण स्थान दिलाया और कई महत्त्वपूर्ण प्रौद्योगिकी और अनुसंधान क्षेत्र में प्रगति की इसरो की उपलब्धियाँ भारतीय अंतरिक्ष क्षेत्र के विकास में महत्त्वपूर्ण योगदान दर्शाती हैं। इसरो की स्थापना वर्ष 1969 में अंतरिक्ष प्रौद्योगिकी के विकास को बढ़ावा देने के उद्देश्य से की गई थी। इसका मुख्य उद्देश्य देश के सामाजिक आर्थिक विकास के लिए अंतरिक्ष संबंधित कार्यों का प्रबंधन करना है। इसरो कई विभिन्न क्षेत्रों में महत्त्वपूर्ण भूमिका निभाता है;जैसे संचार, मौसम विज्ञान,रिमोट सेंसिंग, नेविगेशन और वैज्ञानिक अनुसंधान आदि इसका मुख्य लक्ष्य विभिन्न राष्ट्रीय आवश्यकताओं को पूरा करने के लिए अंतरिक्ष प्रौद्योगिकी को आगे बढ़ाना और उसका उपयोग करना है।

इसरो किस क्षेत्र में महत्त्वपूर्ण भूमिका नहीं निभाता है?

**(1)** वैज्ञानिक अनुसंधान

**(2)** मौसम विज्ञान

**(3)** **राजनीति** ✔

**(4)** संचार

**Q.199**

निम्नलिखित गद्यांश के आधार पर प्रश्नों के उत्तर दें - भारतीय अंतरिक्ष अनुसंधान संगठन, जिसे आमतौर पर 'इसरो' के नाम से जाना जाता है, यह भारत की प्रमुख राष्ट्रीय अंतरिक्ष एजेंसी है। भारत सरकार अंतरिक्ष के क्षेत्र में प्रमुख अनुसंधान, विकास और अन्वेषण गतिविधियों को निर्देशित करती है। इसरो ने अपने प्रयासों से अंतरिक्ष क्षेत्र में भारत को महत्वपूर्ण स्थान दिलाया और कई महत्त्वपूर्ण प्रौद्योगिकी और अनुसंधान क्षेत्र में प्रगति की इसरो की उपलब्धियाँ भारतीय अंतरिक्ष क्षेत्र के विकास में महत्त्वपूर्ण योगदान दर्शाती हैं। इसरो की स्थापना वर्ष 1969 में अंतरिक्ष प्रौद्योगिकी के विकास को बढ़ावा देने के उद्देश्य से की गई थी। इसका मुख्य उद्देश्य देश के सामाजिक आर्थिक विकास के लिए अंतरिक्ष संबंधित कार्यों का प्रबंधन करना है। इसरो कई विभिन्न क्षेत्रों में महत्त्वपूर्ण भूमिका निभाता है;जैसे संचार, मौसम विज्ञान,रिमोट सेंसिंग, नेविगेशन और वैज्ञानिक अनुसंधान आदि इसका मुख्य लक्ष्य विभिन्न राष्ट्रीय आवश्यकताओं को पूरा करने के लिए अंतरिक्ष प्रौद्योगिकी को आगे बढ़ाना और उसका उपयोग करना है।

उपर्युक्त गद्यांश का भाव बताएं -

**(1)** इसकी स्थापना अंतरिक्ष प्रौद्योगिकी के विकास को सामान्य बनाने के लिए की गई।

**(2)** **इसरो ने अपने प्रयासों से अंतरिक्ष क्षेत्र में भारत को गौरवान्वित किया है। ✔**

**(3)** इसरो ने धर्म के क्षेत्र में भारत को महत्त्वपूर्ण स्थान दिलाया।

**(4)** भारतीय अंतरिक्ष क्षेत्र के विकास में इसरो का कोई स्थान नहीं है।

**Q.200**

निम्नलिखित गद्यांश के आधार पर प्रश्नों के उत्तर दें - भारतीय अंतरिक्ष अनुसंधान संगठन, जिसे आमतौर पर 'इसरो' के नाम से जाना जाता है, यह भारत की प्रमुख राष्ट्रीय अंतरिक्ष एजेंसी है। भारत सरकार अंतरिक्ष के क्षेत्र में प्रमुख अनुसंधान, विकास और अन्वेषण गतिविधियों को निर्देशित करती है। इसरो ने अपने प्रयासों से अंतरिक्ष क्षेत्र में भारत को महत्वपूर्ण स्थान दिलाया और कई महत्त्वपूर्ण प्रौद्योगिकी और अनुसंधान क्षेत्र में प्रगति की इसरो की उपलब्धियाँ भारतीय अंतरिक्ष क्षेत्र के विकास में महत्त्वपूर्ण योगदान दर्शाती हैं। इसरो की स्थापना वर्ष 1969 में अंतरिक्ष प्रौद्योगिकी के विकास को बढ़ावा देने के उद्देश्य से की गई थी। इसका मुख्य उद्देश्य देश के सामाजिक आर्थिक विकास के लिए अंतरिक्ष संबंधित कार्यों का प्रबंधन करना है। इसरो कई विभिन्न क्षेत्रों में महत्त्वपूर्ण भूमिका निभाता है;जैसे संचार, मौसम विज्ञान,रिमोट सेंसिंग, नेविगेशन और वैज्ञानिक अनुसंधान आदि इसका मुख्य लक्ष्य विभिन्न राष्ट्रीय आवश्यकताओं को पूरा करने के लिए अंतरिक्ष प्रौद्योगिकी को आगे बढ़ाना और उसका उपयोग करना है।

इसरो की स्थापना किस वर्ष हुई?

**(1)** 1990

**(2)** **1969 ✔**

**(3)** 1970

**(4)** 2003 "

## Answer Key / उत्तर कुंजी

| | | | | | | | | | | | | | | |
|---|---|---|---|---|---|---|---|---|---|---|---|---|---|---|
| **1** 4 | **2** 3 | **3** 1 | **4** 4 | **5** 3 | **6** 4 | **7** 2 | **8** 1 | **9** 4 | **10** 3 | **11** 4 | **12** 2 | **13** 2 | **14** 3 | **15** 1 |
| **16** 4 | **17** 2 | **18** 3 | **19** 2 | **20** 3 | **21** 3 | **22** 4 | **23** 4 | **24** 2 | **25** 3 | **26** 1 | **27** 4 | **28** 2 | **29** 4 | **30** 4 |
| **31** 1 | **32** 2 | **33** 1 | **34** 2 | **35** 3 | **36** 3 | **37** 4 | **38** 4 | **39** 2 | **40** 4 | **41** 4 | **42** 3 | **43** 3 | **44** 4 | **45** 1 |
| **46** 1 | **47** 2 | **48** 4 | **49** 4 | **50** 2 | **51** 3 | **52** 3 | **53** 2 | **54** 1 | **55** 4 | **56** 1 | **57** 3 | **58** 4 | **59** 1 | **60** 1 |
| **61** 4 | **62** 1 | **63** 2 | **64** 2 | **65** 2 | **66** 1 | **67** 3 | **68** 3 | **69** 3 | **70** 3 | **71** 3 | **72** 1 | **73** 2 | **74** 4 | **75** 3 |
| **76** 1 | **77** 1 | **78** 1 | **79** 4 | **80** 2 | **81** 1 | **82** 3 | **83** 4 | **84** 1 | **85** 1 | **86** 3 | **87** 3 | **88** 3 | **89** 1 | **90** 1 |

| | | | | | | | | | | | | | | |
|---|---|---|---|---|---|---|---|---|---|---|---|---|---|---|
| **91**<br>3 | **92**<br>4 | **93**<br>4 | **94**<br>2 | **95**<br>4 | **96**<br>1 | **97**<br>1 | **98**<br>3 | **99**<br>4 | **100**<br>1 | **101**<br>2 | **102**<br>1 | **103**<br>1 | **104**<br>4 | **105**<br>1 |
| **106**<br>4 | **107**<br>4 | **108**<br>1 | **109**<br>1 | **110**<br>3 | **111**<br>1 | **112**<br>3 | **113**<br>3 | **114**<br>2 | **115**<br>4 | **116**<br>3 | **117**<br>3 | **118**<br>3 | **119**<br>1 | **120**<br>2 |
| **121**<br>3 | **122**<br>1 | **123**<br>4 | **124**<br>2 | **125**<br>2 | **126**<br>3 | **127**<br>4 | **128**<br>4 | **129**<br>2 | **130**<br>2 | **131**<br>4 | **132**<br>2 | **133**<br>4 | **134**<br>4 | **135**<br>4 |
| **136**<br>3 | **137**<br>4 | **138**<br>4 | **139**<br>4 | **140**<br>3 | **141**<br>3 | **142**<br>2 | **143**<br>3 | **144**<br>3 | **145**<br>4 | **146**<br>1 | **147**<br>3 | **148**<br>2 | **149**<br>1 | **150**<br>1 |
| **151**<br>4 | **152**<br>3 | **153**<br>3 | **154**<br>4 | **155**<br>4 | **156**<br>3 | **157**<br>2 | **158**<br>4 | **159**<br>1 | **160**<br>4 | **161**<br>4 | **162**<br>4 | **163**<br>1 | **164**<br>1 | **165**<br>4 |
| **166**<br>3 | **167**<br>3 | **168**<br>4 | **169**<br>4 | **170**<br>1 | **171**<br>2 | **172**<br>3 | **173**<br>3 | **174**<br>1 | **175**<br>1 | **176**<br>1 | **177**<br>2 | **178**<br>2 | **179**<br>2 | **180**<br>1 |
| **181**<br>2 | **182**<br>4 | **183**<br>1 | **184**<br>2 | **185**<br>1 | **186**<br>2 | **187**<br>3 | **188**<br>1 | **189**<br>2 | **190**<br>4 | **191**<br>3 | **192**<br>4 | **193**<br>3 | **194**<br>3 | **195**<br>3 |
| **196**<br>3 | **197**<br>3 | **198**<br>3 | **199**<br>2 | **200**<br>2 | | | | | | | | | | |

Quick Sarkari

GOVT. OF NCT OF DELHI
Delhi Subordinate Services Selection Board
FC-18, Institutional Area, Karkardooma, Delhi – 110092.
www.dsssb.delhigovt.nic.in

| | |
|---|---|
| Participant ID | [redacted] |
| Participant Name | [redacted] |
| Test Center Name | Aadarsh Pariksha Kendra CENTER B - Gate No 2 - Noida Sector 64 |
| Test Date | 22/02/2026 |
| Test Time | 9:00 AM - 11:00 AM |
| Subject | Bailiff |

Section : **General intelligence and Reasoning Ability**

**Q.1** **Refer to the following letter and symbol series and answer the question that follows. Counting to be done from left to right only.**

**(Left) H Q € $ W © I & £ R © & £ $ # D # % * @ X I (Right)**

**How many such letters are there each of which is immediately preceded by a symbol and also immediately followed by a symbol?**4693

**Ans**

✗ 1. 6

✗ 2. 5

✗ 3. 3

✓ 4. 4

Question ID : **441009790797**
Option 1 ID : **4410093117190**
Option 2 ID : **4410093117188**
Option 3 ID : **4410093117189**
Option 4 ID : **4410093117187**

QuickSarkari.com | WhatsApp Channel | Telegram: t.me/quick_sarkari

Q.2 Refer to the following series and answer the question.

(Left)
H B G A B C D E F G H T I J K L F O E I O N I O E A U
O I I H F H (Right)

If all the consonants are dropped from the series, which letter will be fourth from the right?15767

Ans
✗ 1. E
✗ 2. I
✓ 3. U
✗ 4. O

Question ID : **441009769827**
Option 1 ID : **4410093033304**
Option 2 ID : **4410093033303**
Option 3 ID : **4410093033301**
Option 4 ID : **4410093033302**

Q.3 In a certain code language,
A + B means 'A is the mother of B',
A - B means 'A is the brother of B',
A × B means 'A is the wife of B' and
A ÷ B means 'A is the father of B'.
If W ÷ T - U + V × S, how is W related to S?

Ans
✓ 1. Wife's mother's father
✗ 2. Father's mother's brother
✗ 3. Mother's father's sister
✗ 4. Wife's father's brother

Question ID : **4410091720157**
Option 1 ID : **4410096783932**
Option 2 ID : **4410096783930**
Option 3 ID : **4410096783931**
Option 4 ID : **4410096783933**

Q.4 Each of Abhi, Bikas, Chandu, Diya, Ekansh, Fatima and Gonu has an exam on a different day of a week starting from Monday and ending on Sunday of the same week. Only two people have exams after Diya. Only three people have exams between Diya and Chandu. Fatima has exam immediately after Chandu. Abhi has exam immediately before Bikas but Bikas has not exam on the last day of the week. Gonu has exam immediate after Ekansh. On which day does Fatima have the exam?

Ans
✗ 1. Thursday
✗ 2. Wednesday
✗ 3. Friday
✓ 4. Tuesday

Question ID : **4410091609217**
Option 1 ID : **4410096355786**
Option 2 ID : **4410096355785**
Option 3 ID : **4410096355787**
Option 4 ID : **4410096355784**

Quick Sarkari

Q.5 Refer to the following letter series and answer the question.

(Left) E R A G E L I K U F O M I N E B J V I Z (Right)

How many such consonants are there ,each of which is immediately preceded by a vowel and also immediately followed by a vowel?15614

Ans
✗ 1. Two
✗ 2. Three
✓ 3. Seven
✗ 4. Six

Question ID : **441009769674**
Option 1 ID : **4410093032691**
Option 2 ID : **4410093032692**
Option 3 ID : **4410093032689**
Option 4 ID : **4410093032690**

Q.6 Each vowel in the word OBSTACLE is changed to the following second letter in the English alphabetical order and each consonant is changed to the letter immediately preceding it in the English alphabetical order. Then all the letters thus formed are arranged in alphabetical order. Which of the following letters will be third from the right in the new group of letters thus formed?3144

Ans
✗ 1. B
✗ 2. G
✗ 3. K
✓ 4. Q

Question ID : **441009789268**
Option 1 ID : **4410093111074**
Option 2 ID : **4410093111071**
Option 3 ID : **4410093111073**
Option 4 ID : **4410093111072**

Q.7 Refer to the following letter series and answer the question.

(Left) I P A M I F O G E Y T I V B N O Q E X (Right)

How many such consonants are there, each of which is immediately preceded by a vowel and also immediately followed by a vowel?15621

Ans
✗ 1. Two
✓ 2. Five
✗ 3. Four
✗ 4. Three

Question ID : **441009769681**
Option 1 ID : **4410093032719**
Option 2 ID : **4410093032717**
Option 3 ID : **4410093032718**
Option 4 ID : **4410093032720**

QuickSarkari.com | WhatsApp Channel | Telegram: t.me/quick_sarkari

Q.8 **Rohan is the son of Lalita and Lalita is the mother of Sonu. Sonu is the brother of Ravi. Yogita is the wife of Sonu. Nandini and Mahesh are daughter and son of Yogita, respectively. How is Lalita related to Mahesh?**

Ans
- ✔ 1. Father's mother
- ✘ 2. Father's sister
- ✘ 3. Mother's mother
- ✘ 4. Mother

Question ID : **4410091612385**
Option 1 ID : **4410096368386**
Option 2 ID : **4410096368388**
Option 3 ID : **4410096368387**
Option 4 ID : **4410096368389**

Q.9 **Each vowel in the word STABLER is changed to the letter immediately following it in the English alphabetical order and each consonant is changed to the letter immediately preceding it in the English alphabetical order. How many letters will appear exactly twice in the group of letters thus formed?** 9042

Ans
- ✘ 1. Two
- ✘ 2. One
- ✘ 3. Three
- ✔ 4. Zero

Question ID : **441009782904**
Option 1 ID : **4410093085621**
Option 2 ID : **4410093085620**
Option 3 ID : **4410093085622**
Option 4 ID : **4410093085619**

Q.10 **Golu, Hema, Jack, Lalu, Mehul and Neha live on six different floors of the same building. The lowermost floor in the building is numbered 1, the floor above it, number 2 and so on till the topmost floor is numbered 6. Hema lives on floor number 4. Only two people live between Hema and Golu. Mehul lives immediately above Golu. Only one person lives between Neha and Jack. Lalu lives immediately above Neha. How many people live between Golu and Neha?**

Ans
- ✘ 1. One
- ✘ 2. None
- ✔ 3. Three
- ✘ 4. Two

Question ID : **4410091609245**
Option 1 ID : **4410096355897**
Option 2 ID : **4410096355896**
Option 3 ID : **4410096355899**
Option 4 ID : **4410096355898**

Q.11 A, B, C, D, and E are sitting around a circular table, facing the center. C sits to the immediate right of E. A sits second to the left of D. Who is sitting to the immediate right of A?

Ans
✗ 1. D
✗ 2. E
✗ 3. C
✓ 4. B

Question ID : **4410091621942**
Option 1 ID : **4410096406553**
Option 2 ID : **4410096406555**
Option 3 ID : **4410096406552**
Option 4 ID : **4410096406554**

Q.12 Each of H, I, J, K, L, M, and N has an exam on a different day of a week starting from Monday and ending on Sunday of the same week. K has an exam on Friday. Only one person has an exam between L and M. J has an exam on the day immediately before N. Only one person has an exam after M. If I's exam is on Wednesday, how many people have exams before L?

Ans
✗ 1. Four
✓ 2. Three
✗ 3. Two
✗ 4. One

Question ID : **4410091624104**
Option 1 ID : **4410096414994**
Option 2 ID : **4410096414991**
Option 3 ID : **4410096414992**
Option 4 ID : **4410096414993**

Q.13 In a certain code language, 'DRAW' is coded as '9218' and 'RENT' is coded as '4685'. What is the code for 'R' in the given code language?

Ans
✗ 1. 3
✓ 2. 8
✗ 3. 4
✗ 4. 5

Question ID : **4410091625561**
Option 1 ID : **4410096420704**
Option 2 ID : **4410096420702**
Option 3 ID : **4410096420701**
Option 4 ID : **4410096420703**

QuickSarkari.com | WhatsApp Channel | Telegram: t.me/quick_sarkari

Q.14 Refer to the following series and answer the question.

(Left)
H A W W A H K Y E B A A O I U K L J U N H G B V F
C E W F D F (Right)

If all the consonants are dropped from the series, which letter will be sixth from the right?15772

Ans
✗ 1. U
✗ 2. E
✓ 3. A
✗ 4. I

Question ID : **441009769832**
Option 1 ID : **4410093033324**
Option 2 ID : **4410093033322**
Option 3 ID : **4410093033321**
Option 4 ID : **4410093033323**

Q.15 Seven people Mihika, Nidhi, Omi, Palak, Qunur, Renu and Siya are sitting in a row, facing north. Renu sits second to the left of Siya and Siya sits at one of the extreme ends. Omi sits fourth to the right of Nidhi. Palak sits immediate left of Qunur. Who sits at the extreme left end of the line?

Ans
✓ 1. Mihika
✗ 2. Omi
✗ 3. Qunur
✗ 4. Palak

Question ID : **4410091609128**
Option 1 ID : **4410096355428**
Option 2 ID : **4410096355431**
Option 3 ID : **4410096355430**
Option 4 ID : **4410096355429**

Q.16 Seven people F, G, H, Q, R, S and T are sitting around a circular table facing the center of the table. Only two people sit between Q and T when counted from the left of Q. S sits fourth to the left of Q.R sits fourth to the right of T. G is not an immediate neighbor of R or Q. F is not an immediate neighbor of G. Who sits third to the right of H?2216

Ans
✗ 1. R
✗ 2. S
✗ 3. T
✓ 4. F

Question ID : **441009788340**
Option 1 ID : **4410093107359**
Option 2 ID : **4410093107361**
Option 3 ID : **4410093107362**
Option 4 ID : **4410093107360**

Q.17 In a certain code language, 'PRAY' is coded as '3246' and 'RAYS' is coded as '2396'. What is the code for 'S' in the given code language?9971

Ans
✗ 1. 3
✓ 2. 9
✗ 3. 6
✗ 4. 2

Question ID : **441009795955**
Option 1 ID : **4410093137822**
Option 2 ID : **4410093137819**
Option 3 ID : **4410093137820**
Option 4 ID : **4410093137821**

Q.18 **Refer to the following letter and symbol series and answer the question. Counting to be done from left to right only.**
**(Left) I $ E Ω O & A @ U * E Ω I $ A @ U * O & E (Right)**
**How many such vowels are there, each of which is immediately preceded by a symbol and also immediately followed by another vowel?**11904

Ans
✗ 1. Two
✗ 2. One
✓ 3. None
✗ 4. Three

Question ID : **441009797885**
Option 1 ID : **4410093145541**
Option 2 ID : **4410093145540**
Option 3 ID : **4410093145539**
Option 4 ID : **4410093145542**

Q.19 In a row of 30 students facing north, Riya is 12th from the left end. What is her position from the right end?

Ans
✗ 1. 18th
✓ 2. 19th
✗ 3. 17th
✗ 4. 20th

Question ID : **4410091624447**
Option 1 ID : **4410096416331**
Option 2 ID : **4410096416332**
Option 3 ID : **4410096416334**
Option 4 ID : **4410096416333**

Quick Sarkari

Q.20 X, Y, Z, W, V, and U are sitting around a circular table facing the center. U sits third to the left of X. W sits to the immediate right of V. Z sits second to the left of X. How many people are sitting between X and W when counted from the left of X?

Ans
✗ 1. Five
✗ 2. Two
✓ 3. Three
✗ 4. Four

Question ID : **4410091621968**
Option 1 ID : **4410096406658**
Option 2 ID : **4410096406657**
Option 3 ID : **4410096406659**
Option 4 ID : **4410096406656**

Section : **General intelligence and Reasoning Ability1**

Q.1 If the water source is placed along X-Y, as shown in the figure, which of the following options will be the water reflection of the given figure?

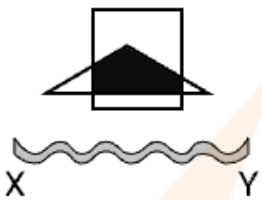


Ans
✗ 1.

✗ 2.

✓ 3.

✗ 4.


Question ID : **4410091471681**
Option 1 ID : **4410095814615**
Option 2 ID : **4410095814618**
Option 3 ID : **4410095814617**
Option 4 ID : **4410095814616**

QuickSarkari.com | WhatsApp Channel | Telegram: t.me/quick_sarkari

Q.2 Based on the English alphabetical order, three of the following four letter cluster pairs are alike in a certain way and thus form a group. Which is the one that does not belong to that group?
(Note: The odd man out is not based on the number of consonants/vowels or their position in the letter cluster.)6467

Ans
✗ 1. UV–ZA
✗ 2. XY–CD
✗ 3. BC–GH
✓ 4. LM–PT

Question ID : **441009792527**
Option 1 ID : **4410093124109**
Option 2 ID : **4410093124108**
Option 3 ID : **4410093124110**
Option 4 ID : **4410093124107**

Q.3 Select the pair which follows the same pattern as that followed by the two set of pairs given below. Both pairs follow the same pattern.

OBY : SFC
KAQ : OEU

Ans
✗ 1. KNW : PQZ
✗ 2. ZIT : ENW
✗ 3. GTC : LWH
✓ 4. LEA : PIE

Question ID : **441009789697**
Option 1 ID : **4410093112789**
Option 2 ID : **4410093112788**
Option 3 ID : **4410093112787**
Option 4 ID : **4410093112790**

Q.4 If 'I' stands for '+' , 'J' stands for '×', 'K' stands for '÷', and 'L' stands for '-' what will come in place of the question mark '?' in the following equation?
15 J 3 I (45 K 5) J 2 = ?

Ans
✗ 1. 72
✓ 2. 63
✗ 3. 51
✗ 4. 84

Question ID : **4410091494156**
Option 1 ID : **4410095902246**
Option 2 ID : **4410095902245**
Option 3 ID : **4410095902244**
Option 4 ID : **4410095902247**

Q.5 Below are given two sets of numbers. In each set of numbers, a certain mathematical operation on the first number results in the second number. Similarly, certain mathematical operations on the second number result in the third number, and so on. Which of the given options follows the same set of operations as in the question?
(NOTE – A two/three-digit number cannot be broken into individual digits for operations e.g. if 37 is followed by 10, the operation cannot be 3+7 as a two-digit number cannot be broken into individual digits)

10 – 5 – 25 – 100; 12 – 6 – 36 – 1444523

Ans
✗ 1. 20 – 10 – 100 – 200
✗ 2. 15 – 8 – 64 – 225
✓ 3. 14 – 7 – 49 – 196
✗ 4. 18 – 9 – 18 – 324

Question ID : **441009588089**
Option 1 ID : **4410092307484**
Option 2 ID : **4410092307485**
Option 3 ID : **4410092307482**
Option 4 ID : **4410092307483**

Q.6 What should come in place of ? in the given series based on the English alphabetical order?
EOT CMR AKP YIN ?

Ans
✓ 1. WGL
✗ 2. WHM
✗ 3. VGL
✗ 4. VFK

Question ID : **4410091492203**
Option 1 ID : **4410095894536**
Option 2 ID : **4410095894535**
Option 3 ID : **4410095894534**
Option 4 ID : **4410095894533**

Q.7 Select the set in which the numbers are related in the same way as are the numbers of the following sets.
(NOTE : Operations should be performed on the whole numbers, without breaking down the numbers into its constituent digits. E.g. 13 – Operations on 13 such as adding / subtracting /multiplying etc. to 13 can be performed. Breaking down 13 into 1 and 3 and then performing mathematical operations on 1 and 3 is not allowed.)

(6, 16, 31)
(8, 20, 39)

Ans
✗ 1. (7, 10, 19)
✗ 2. (5, 5, 29)
✗ 3. (11, 23, 45)
✓ 4. (9, 22, 43)

Question ID : **441009590079**
Option 1 ID : **4410092315429**
Option 2 ID : **4410092315430**
Option 3 ID : **4410092315431**
Option 4 ID : **4410092315432**

Q.8 If the water source is placed along X-Y, as shown in the figure, which of the following options will be the water reflection of the given figure?

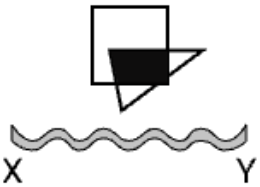


Ans

✗ 1. 

✓ 2. 

✗ 3. 

✗ 4. 

Question ID : **4410091471693**
Option 1 ID : **4410095814660**
Option 2 ID : **4410095814661**
Option 3 ID : **4410095814662**
Option 4 ID : **4410095814659**

Q.9 If 'A' stands for '÷', 'B' stands for '×', 'C' stands for '+' and 'D' stands for '−', then what will come in place of the question mark (?) in the following equation?

99 D 144 A 6 B 3 C 11 = ?

Ans

✗ 1. 40

✗ 2. 36

✗ 3. 34

✓ 4. 38

Question ID : **441009553539**
Option 1 ID : **4410092169470**
Option 2 ID : **4410092169473**
Option 3 ID : **4410092169472**
Option 4 ID : **4410092169471**

QuickSarkari.com | WhatsApp Channel | Telegram: t.me/quick_sarkari

Q.10 If 2 is added to each even digit and 2 is added to each odd digit in the number 523764, what will be the sum of all odd digits in the new number thus formed?

Ans
✗ 1. 26
✗ 2. 18
✗ 3. 24
✓ 4. 21

Question ID : **4410091469150**
Option 1 ID : **4410095804557**
Option 2 ID : **4410095804554**
Option 3 ID : **4410095804556**
Option 4 ID : **4410095804555**

Q.11 What will come in the place of '?' in the following equation, if '+' and ' – ' are interchanged and '×' and '÷' are interchanged?
44 ÷ 2 - 18 × 3 + 16 = ?

Ans
✓ 1. 78
✗ 2. 52
✗ 3. 64
✗ 4. 86

Question ID : **4410091494186**
Option 1 ID : **4410095902361**
Option 2 ID : **4410095902360**
Option 3 ID : **4410095902363**
Option 4 ID : **4410095902362**

Q.12 Based on the English alphabetical order, three of the following four letter cluster pairs are alike in a certain way and thus form a group. Which is the one that does not belong to that group?
(Note: The odd man out is not based on the number of consonants/vowels or their position in the letter cluster.)5974

Ans
✗ 1. VD - XG
✓ 2. TX - VB
✗ 3. SO - UR
✗ 4. AJ - CM

Question ID : **441009792039**
Option 1 ID : **4410093122155**
Option 2 ID : **4410093122158**
Option 3 ID : **4410093122156**
Option 4 ID : **4410093122157**

QuickSarkari.com | WhatsApp Channel | Telegram: t.me/quick_sarkari

Q.13 Select the pair which follows the same pattern as that followed by the two set of pairs given below. Both pairs follow the same pattern.
MGT : NIW
JPX : KRA

Ans
✔ 1. HLR : INU
✘ 2. GDU : HFV
✘ 3. PIT : QWJ
✘ 4. QTY : RUZ

Question ID : **4410091494103**
Option 1 ID : **4410095902032**
Option 2 ID : **4410095902035**
Option 3 ID : **4410095902033**
Option 4 ID : **4410095902034**

Q.14 16 is related to 46 following a certain logic. Following the same logic, 21 is related to 56. To which of the following is 13 related, following the same logic?

(NOTE: Operations should be performed on the whole numbers, without breaking down the numbers into its constituent digits. E.g. 13 - Operations on 13 such as adding / subtracting / multiplying etc. to 13 can be performed . Breaking down 13 into 1 and 3 and then performing mathematical operations on 1 and 3 is not allowed.)705

Ans
✘ 1. 32
✔ 2. 40
✘ 3. 42
✘ 4. 36

Question ID : **441009590727**
Option 1 ID : **4410092318023**
Option 2 ID : **4410092318021**
Option 3 ID : **4410092318024**
Option 4 ID : **4410092318022**

Q.15 Based on the English alphabetical order, three of the following four letter-cluster pairs are alike in a certain way and thus form a group. Which letter-cluster pair DOES NOT belong to that group?
(Note: The odd one out is not based on the number of consonants/vowels or their position in the letter-cluster.)

Ans
✘ 1. NO - LM
✘ 2. JK - HI
✔ 3. DE - BD
✘ 4. PQ - NO

Question ID : **441009787851**
Option 1 ID : **4410093105404**
Option 2 ID : **4410093105405**
Option 3 ID : **4410093105406**
Option 4 ID : **4410093105403**

Q.16 SILB is related to VLOE in a certain way based on the English alphabetical order. In the same way, QZTO is related to TCWR. To which of the following is AJXN related, following the same logic?
9805

Ans
✗ 1. ENZR
✗ 2. COBP
✓ 3. DMAQ
✗ 4. CMBR

Question ID : **441009795789**
Option 1 ID : **4410093137157**
Option 2 ID : **4410093137156**
Option 3 ID : **4410093137155**
Option 4 ID : **4410093137158**

Q.17 What should come in place of ? in the given series based on the English alphabetical order?

ABC FGH KLM PQR ?

Ans
✗ 1. WXY
✗ 2. TUV
✗ 3. STU
✓ 4. UVW

Question ID : **4410091492080**
Option 1 ID : **4410095894020**
Option 2 ID : **4410095894019**
Option 3 ID : **4410095894018**
Option 4 ID : **4410095894017**

Q.18 In the following triad, each group of letters is related to the subsequent one following a certain logic. Select from the given options, the one which follows the same logic.

BROW - RBOW - WRBO
NOSE - ONSE - EONS1511

Ans
✗ 1. BOKE - BKOE - EKOB
✗ 2. RIBE - IRBE - IBER
✗ 3. GOLY - OGLY - YOLG
✓ 4. CORK - OCRK - KOCR

Question ID : **441009755851**
Option 1 ID : **4410092977398**
Option 2 ID : **4410092977400**
Option 3 ID : **4410092977399**
Option 4 ID : **4410092977397**

QuickSarkari.com | WhatsApp Channel | Telegram: t.me/quick_sarkari

Q.19 16 is related to 168 following a certain logic. Following the same logic, 23 is related to 238. To which of the following is 19 related, following the same logic?

(NOTE: Operations should be performed on the whole numbers, without breaking down the numbers into their constituent digits. E.g. 13 – Operations on 13 such as adding/subtracting/multiplying etc. to 13, can be performed. Breaking down 13 into 1 and 3 and then performing mathematical operations on 1 and 3 is not allowed.)349

Ans
✗ 1. 206
✓ 2. 198
✗ 3. 211
✗ 4. 190

Question ID : **441009590371**
Option 1 ID : **4410092316599**
Option 2 ID : **4410092316598**
Option 3 ID : **4410092316600**
Option 4 ID : **4410092316597**

Q.20 5 is related to 145 following a certain logic. Following the same logic, 7 is related to 363. To which of the following is 8 related, following the same logic?

(NOTE: Operations should be performed on the whole numbers, without breaking down the numbers into their constituent digits. E.g. 13 – Operations on 13 such as adding/subtracting/multiplying etc. to 13, can be performed. Breaking down 13 into 1 and 3 and then performing mathematical operations on 1 and 3 is not allowed.)346

Ans
✗ 1. 556
✗ 2. 540
✗ 3. 548
✓ 4. 532

Question ID : **441009590368**
Option 1 ID : **4410092316588**
Option 2 ID : **4410092316586**
Option 3 ID : **4410092316587**
Option 4 ID : **4410092316585**

Section : **General Awareness**

Q.1 In India's pre-reform period (before 1991), how was the role of the private sector characterised?

Ans
✗ 1. Dominant with minimal government control
✗ 2. Completely absent from industrial activity
✗ 3. Fully liberalised and market-driven
✓ 4. Restricted and regulated by the government

Question ID : **4410091542237**
Option 1 ID : **4410096092056**
Option 2 ID : **4410096092057**
Option 3 ID : **4410096092058**
Option 4 ID : **4410096092055**

QuickSarkari.com | WhatsApp Channel | Telegram: t.me/quick_sarkari

Q.2 **The establishment of the Banking Ombudsman mechanism in 1995 mainly strengthened which institutional aspect of the Indian banking system?**

Ans
✗ 1. Credit allocation to priority sectors
✗ 2. Monetary policy formulation by the RBI
✓ 3. Consumer protection and grievance redressal
✗ 4. Capital adequacy regulation of banks

Question ID : **4410091510473**
Option 1 ID : **4410091997050**
Option 2 ID : **4410091997052**
Option 3 ID : **4410091997051**
Option 4 ID : **4410091997053**

Q.3 **Among India's island groups, which one is primarily of coral origin?**

Ans
✗ 1. Sriharikota Island
✗ 2. Nicobar Islands
✓ 3. Lakshadweep Islands
✗ 4. Andaman Islands

Question ID : **4410091550665**
Option 1 ID : **4410096128138**
Option 2 ID : **4410096128136**
Option 3 ID : **4410096128137**
Option 4 ID : **4410096128135**

Q.4 **The Citizenship Act, 1955, was enacted by Parliament in exercise of the powers conferred under which provision of the Constitution of India?**

Ans
✗ 1. Article 5
✗ 2. Article 6
✗ 3. Article 10
✓ 4. Article 11

Question ID : **4410091536842**
Option 1 ID : **4410096070659**
Option 2 ID : **4410096070660**
Option 3 ID : **4410096070661**
Option 4 ID : **4410096070662**

Q.5 **The strategy of economic development adopted in India's Second Five Year Plan was primarily based on which of the following economic models?**

Ans
✓ 1. Mahalanobis Model
✗ 2. Harrod–Domar Growth Model
✗ 3. Gandhian Model
✗ 4. Lewis Dual Sector Model

Question ID : **4410091550115**
Option 1 ID : **4410096135141**
Option 2 ID : **4410096135140**
Option 3 ID : **4410096135139**
Option 4 ID : **4410096135142**

Quick Sarkari

Q.6 On which date did the SEBI Act, providing statutory status to the Securities and Exchange Board of India (SEBI), come into force?

Ans
✔ 1. 30 January 1992
✘ 2. 15 March 1991
✘ 3. 4 April 1992
✘ 4. 1 July 1993

Question ID : **4410091536738**
Option 1 ID : **4410096070173**
Option 2 ID : **4410096070172**
Option 3 ID : **4410096070174**
Option 4 ID : **4410096070175**

Q.7 The primary objective of the UDAN (Ude Desh ka Aam Naagrik) scheme is to make which service affordable for the common citizen?

Ans
✘ 1. Maritime passenger transport
✔ 2. Air travel
✘ 3. Rail travel
✘ 4. Urban bus services

Question ID : **4410091542189**
Option 1 ID : **4410096091869**
Option 2 ID : **4410096091868**
Option 3 ID : **4410096091867**
Option 4 ID : **4410096091870**

Q.8 Which was the first linguistic state formed in India in 1953?

Ans
✘ 1. Gujarat
✘ 2. Tamil Nadu
✘ 3. Maharashtra
✔ 4. Andhra

Question ID : **4410091550123**
Option 1 ID : **4410096135088**
Option 2 ID : **4410096135090**
Option 3 ID : **4410096135087**
Option 4 ID : **4410096135089**

Q.9 What happens if the government imposes a price floor higher than the equilibrium price in a market?

Ans
✘ 1. The market reaches equilibrium
✘ 2. The market collapses
✘ 3. Excess demand occurs
✔ 4. Excess supply occurs

Question ID : **441009627399**
Option 1 ID : **4410092463749**
Option 2 ID : **4410092463751**
Option 3 ID : **4410092463748**
Option 4 ID : **4410092463750**

Q.10 **India shares the longest international land boundary with which of the following countries?**

Ans
✗ 1. Pakistan
✓ 2. Bangladesh
✗ 3. Myanmar
✗ 4. Sri Lanka

Question ID : **4410091550617**
Option 1 ID : **4410096128625**
Option 2 ID : **4410096128624**
Option 3 ID : **4410096128626**
Option 4 ID : **4410096128623**

Q.11 **Birsa Munda's tribal uprising in the 1890s was primarily centred in which region of India?**

Ans
✗ 1. The North-East frontier region
✗ 2. The Deccan plateau region
✓ 3. The Chotanagpur region
✗ 4. The Terai foothills region

Question ID : **4410091550026**
Option 1 ID : **4410096135886**
Option 2 ID : **4410096135883**
Option 3 ID : **4410096135884**
Option 4 ID : **4410096135885**

Q.12 **The reorganisation of Indian states under the States Reorganisation Act, 1956, was primarily based on which of the following criteria?**

Ans
✗ 1. Religious identity
✗ 2. Administrative convenience
✓ 3. Linguistic principles
✗ 4. Economic factors

Question ID : **4410091550121**
Option 1 ID : **4410096135120**
Option 2 ID : **4410096135119**
Option 3 ID : **4410096135121**
Option 4 ID : **4410096135122**

QuickSarkari.com | WhatsApp Channel | Telegram: t.me/quick_sarkari

Q.13 In India, which institution primarily regulates and supervises the financial sector, particularly banking and monetary policy?

Ans
✗ 1. NITI Aayog
✓ 2. Reserve Bank of India
✗ 3. Ministry of Finance
✗ 4. Securities and Exchange Board of India

Question ID : **4410091542221**
Option 1 ID : **4410096091994**
Option 2 ID : **4410096091992**
Option 3 ID : **4410096091991**
Option 4 ID : **4410096091993**

Q.14 Article 154 of the Constitution of India, which vests the executive power of the State in the Governor, forms part of which constitutional category?

Ans
✓ 1. Part VI
✗ 2. Part XIV
✗ 3. Part V
✗ 4. Part XI

Question ID : **4410091537115**
Option 1 ID : **4410096071751**
Option 2 ID : **4410096071754**
Option 3 ID : **4410096071752**
Option 4 ID : **4410096071753**

Q.15 Considering India's extreme latitudinal and longitudinal limits, along which directional axis does the Indian mainland have its greatest extent?

Ans
✗ 1. Southeast–Northwest
✗ 2. East–West
✗ 3. Northeast–Southwest
✓ 4. North–South

Question ID : **4410091550624**
Option 1 ID : **4410096128522**
Option 2 ID : **4410096128519**
Option 3 ID : **4410096128521**
Option 4 ID : **4410096128520**

QuickSarkari.com | WhatsApp Channel | Telegram: t.me/quick_sarkari

Q.16 **Gir Forest in Gujarat is renowned as the exclusive natural habitat of which prominent wildlife species in India?**

Ans
✔ 1. Asiatic Lion
✘ 2. Elephant
✘ 3. Tiger
✘ 4. Snow Leopard

Question ID : **4410091550152**
Option 1 ID : **4410096128907**
Option 2 ID : **4410096128910**
Option 3 ID : **4410096128908**
Option 4 ID : **4410096128909**

Q.17 **According to the Indian Constitution, which Union Territories of India are provided with both a Legislative Assembly and a Council of Ministers?**

Ans
✘ 1. Andaman & Nicobar and Chandigarh
✘ 2. Lakshadweep and Ladakh
✔ 3. Delhi and Puducherry
✘ 4. Dadra & Nagar Haveli and Daman & Diu

Question ID : **4410091538954**
Option 1 ID : **4410096079172**
Option 2 ID : **4410096079174**
Option 3 ID : **4410096079171**
Option 4 ID : **4410096079173**

Q.18 **The Second Schedule of the Constitution of India contains provisions related to which of the following?**

Ans
✘ 1. Forms of oaths and affirmations
✘ 2. Administration of Scheduled Areas and Scheduled Tribes
✘ 3. Allocation of seats in the Rajya Sabha
✔ 4. Salaries and allowances of constitutional authorities

Question ID : **4410091536820**
Option 1 ID : **4410096070561**
Option 2 ID : **4410096070559**
Option 3 ID : **4410096070562**
Option 4 ID : **4410096070560**

Q.19 **In which year was the Dutch East India Company established?**

Ans
✔ 1. 1602
✘ 2. 1684
✘ 3. 1785
✘ 4. 1666

Question ID : **4410091462969**
Option 1 ID : **4410095780022**
Option 2 ID : **4410095780024**
Option 3 ID : **4410095780025**
Option 4 ID : **4410095780023**

Q.20 **According to the Census Act, 1948, and official Census of India documentation, what is the primary objective of conducting the Census of India?**

Ans
✔ 1. To collect comprehensive population data for national planning and governance
✘ 2. To compile constituency information for electoral adjustments
✘ 3. To record internal migration patterns for administrative purposes
✘ 4. To estimate birth and death trends for demographic assessment

Question ID : **4410091550701**
Option 1 ID : **4410096127437**
Option 2 ID : **4410096127435**
Option 3 ID : **4410096127436**
Option 4 ID : **4410096127438**

Section : **General Awareness1**

Q.1 **In July 2025, which Indian Javelin player won the inaugural "NC Classic" title in Bengaluru?**

Ans
✘ 1. Shivpal Singh
✘ 2. Kishore Kumar
✘ 3. Annu Rani
✔ 4. Neeraj Chopra

Question ID : **4410091549213**
Option 1 ID : **4410096119556**
Option 2 ID : **4410096119553**
Option 3 ID : **4410096119555**
Option 4 ID : **4410096119554**

Q.2 **Which Indian cricketer was named ICC Men's Player of the Month for July 2025?**

Ans
✔ 1. Shubman Gill
✘ 2. Rohit Sharma
✘ 3. Virat Kohli
✘ 4. Jasprit Bumrah

Question ID : **4410091549208**
Option 1 ID : **4410096119535**
Option 2 ID : **4410096119533**
Option 3 ID : **4410096119534**
Option 4 ID : **4410096119536**

QuickSarkari.com | WhatsApp Channel | Telegram: t.me/quick_sarkari

Q.3 **Which film award ceremony, held in September 2025, saw Shah Rukh Khan and Vikrant Massey share the Best Actor prize?**

Ans
✗ 1. Filmfare Awards
✓ 2. National Film Awards
✗ 3. IIFA Awards
✗ 4. Zee Cine Awards

Question ID : **4410091539409**
Option 1 ID : **4410096080973**
Option 2 ID : **4410096080974**
Option 3 ID : **4410096080975**
Option 4 ID : **4410096080976**

Q.4 **What does the proposed Constitution (130th Amendment) Bill, 2025, seek to change?**

Ans
✗ 1. Introduce a Uniform Civil Code
✓ 2. Provision for removal of Ministers
✗ 3. Economically Weaker Sections of society
✗ 4. Increase the retirement age of judges

Question ID : **4410091566415**
Option 1 ID : **4410096187066**
Option 2 ID : **4410096187067**
Option 3 ID : **4410096187064**
Option 4 ID : **4410096187065**

Q.5 **Mamta Chandrakar is a famous folk singer of _____.**

Ans
✗ 1. Rajasthan
✓ 2. Chhattisgarh
✗ 3. Gujarat
✗ 4. Punjab

Question ID : **441009607858**
Option 1 ID : **4410092386550**
Option 2 ID : **4410092386552**
Option 3 ID : **4410092386549**
Option 4 ID : **4410092386551**

Q.6 **In June 2025, the Ministry of Minority Affairs launched a centralized digital portal for real-time monitoring of Waqf properties. What is the name of this portal?**

Ans
✓ 1. UMEED Central Portal
✗ 2. National Waqf Registry Portal
✗ 3. e Waqf Monitoring Portal
✗ 4. WAQF Connect Portal

Question ID : **4410091567246**
Option 1 ID : **4410096190284**
Option 2 ID : **4410096190285**
Option 3 ID : **4410096190286**
Option 4 ID : **4410096190283**

QuickSarkari.com | WhatsApp Channel | Telegram: t.me/quick_sarkari

Q.7 In January 2026, which public affairs leader received the Padma Vibhushan posthumously?

Ans
✗ 1. V. K. Malhotra
✗ 2. Bhagat Koshyari
✓ 3. V. S. Achuthanandhan
✗ 4. Shibu Soren

Question ID : **4410091576538**
Option 1 ID : **4410096226952**
Option 2 ID : **4410096226949**
Option 3 ID : **4410096226950**
Option 4 ID : **4410096226951**

Q.8 G20 Leaders' Summit was held in which country in November 2025?

Ans
✗ 1. Brazil
✗ 2. Australia
✓ 3. South Africa
✗ 4. France

Question ID : **4410091534937**
Option 1 ID : **4410096062994**
Option 2 ID : **4410096062993**
Option 3 ID : **4410096062991**
Option 4 ID : **4410096062992**

Q.9 Why did the new labour codes introduce the rule that at least 50% of total remuneration must be counted as wages?

Ans
✗ 1. To lower employee PF contributions
✗ 2. To eliminate allowances entirely
✓ 3. To ensure uniform statutory benefit calculation
✗ 4. To reduce employer liabilities

Question ID : **4410091566384**
Option 1 ID : **4410096186941**
Option 2 ID : **4410096186943**
Option 3 ID : **4410096186942**
Option 4 ID : **4410096186940**

Q.10 In January 2026, which communication method was highlighted for improving litigant access to court information?

Ans
✗ 1. Fax notices
✗ 2. Voice messages
✓ 3. SMS alerts
✗ 4. Postal cards

Question ID : **4410091549439**
Option 1 ID : **4410096120457**
Option 2 ID : **4410096120458**
Option 3 ID : **4410096120459**
Option 4 ID : **4410096120460**

Quick Sarkari

Q.11 **Which of the following organisations has raised India's GDP growth forecast by 40 basis points (bps) to 6.7 per cent in 2025?**

Ans
- ✗ 1. Asian Infrastructure Investment Bank (AIIB)
- ✗ 2. International Economic Development Council (IEDC)
- ✓ 3. Organisation for Economic Cooperation and Development (OECD)
- ✗ 4. World Bank Group (WBG)

Question ID : **4410091536808**
Option 1 ID : **4410096070497**
Option 2 ID : **4410096070495**
Option 3 ID : **4410096070496**
Option 4 ID : **4410096070498**

Q.12 **In the SI system of units, which category includes units of physical quantities that are expressed as combinations of base units such as metre, kilogram, and second?**

Ans
- ✓ 1. Derived units
- ✗ 2. Fundamental units
- ✗ 3. Vector quantities
- ✗ 4. Standard Base units

Question ID : **4410091545607**
Option 1 ID : **4410096105439**
Option 2 ID : **4410096105441**
Option 3 ID : **4410096105442**
Option 4 ID : **4410096105440**

Q.13 **Which saint from Karnataka is known for leading the Lingayat movement?**

Ans
- ✗ 1. Ramanuja
- ✓ 2. Basavanna
- ✗ 3. Tukaram
- ✗ 4. Vidyaranya

Question ID : **441009632857**
Option 1 ID : **4410092485573**
Option 2 ID : **4410092485571**
Option 3 ID : **4410092485572**
Option 4 ID : **4410092485574**

Quick Sarkari

Q.14 Which national science award was posthumously conferred on physicist Jayant Vishnu Narlikar in October 2025?

Ans
✗ 1. Homi Bhabha Medal
✗ 2. Infosys Prize
✗ 3. Shanti Swarup Bhatnagar Prize
✓ 4. Vigyan Ratna Puraskar

Question ID : **4410091539402**
Option 1 ID : **4410096080945**
Option 2 ID : **4410096080946**
Option 3 ID : **4410096080948**
Option 4 ID : **4410096080947**

Q.15 As per the Government of India's notifications recognising Classical Languages up to and including the additions made in 2024, how many Classical Languages does India have in total?

Ans
✗ 1. 8
✗ 2. 10
✓ 3. 11
✗ 4. 6

Question ID : **4410091545015**
Option 1 ID : **4410096103092**
Option 2 ID : **4410096103093**
Option 3 ID : **4410096103094**
Option 4 ID : **4410096103091**

Q.16 In July 2025, what did the Supreme Court decide about a state Speaker acting as an adjudicating authority on disqualification petitions?

Ans
✓ 1. No immunity when acting as adjudicating authority
✗ 2. Immunity unless reviewed by High Court
✗ 3. Immunity only for certain orders
✗ 4. Full constitutional immunity applies

Question ID : **4410091549441**
Option 1 ID : **4410096120465**
Option 2 ID : **4410096120468**
Option 3 ID : **4410096120467**
Option 4 ID : **4410096120466**

QuickSarkari.com | WhatsApp Channel | Telegram: t.me/quick_sarkari

Q.17 **Which chemical among the following is responsible for the depletion of the Ozone layer in the atmosphere?**

Ans
✔ 1. Chlorofluorocarbons
✘ 2. Magnesium oxide
✘ 3. Manganese oxide
✘ 4. Sodium chloride

Question ID : **441009624202**
Option 1 ID : **4410092450940**
Option 2 ID : **4410092450943**
Option 3 ID : **4410092450942**
Option 4 ID : **4410092450941**

Q.18 **Which SI unit is used to measure the rate of radioactive disintegration (activity) of a radioactive substance?**

Ans
✔ 1. Becquerel
✘ 2. Sievert
✘ 3. Gray
✘ 4. Dalton

Question ID : **441009624717**
Option 1 ID : **4410092453000**
Option 2 ID : **4410092453002**
Option 3 ID : **4410092453001**
Option 4 ID : **4410092453003**

Q.19 **In November 2025, which company announced 'MAgnum', a hospital enablement solution designed to make the cashless experience seamless for members?**

Ans
✘ 1. Thyrocare Technologies Limited
✘ 2. Poly Medicure Limited
✘ 3. Practo Technologies Private Limited
✔ 4. Medi Assist Healthcare Services Limited

Question ID : **4410091539555**
Option 1 ID : **4410096081554**
Option 2 ID : **4410096081553**
Option 3 ID : **4410096081556**
Option 4 ID : **4410096081555**

QuickSarkari.com | WhatsApp Channel | Telegram: t.me/quick_sarkari

Q.20 In November 2025, which state hosted the 5th Khelo India University Games (KIUG)?

Ans
✗ 1. Maharashtra
✓ 2. Rajasthan
✗ 3. Gujarat
✗ 4. Karnataka

Question ID : **4410091549220**
Option 1 ID : **4410096119584**
Option 2 ID : **4410096119582**
Option 3 ID : **4410096119581**
Option 4 ID : **4410096119583**

Section : **Arithmetical and Numerical Ability**

Q.1 A school has two sections of students. In Section A, students are arranged in rows of 12 each. In Section B, students are arranged in rows of 18 each. If both sections have the same total number of students, what is the minimum number of students in each section?

Ans
✓ 1. 36
✗ 2. 144
✗ 3. 108
✗ 4. 6

Question ID : **4410091551538**
Option 1 ID : **4410096128695**
Option 2 ID : **4410096128696**
Option 3 ID : **4410096128697**
Option 4 ID : **4410096128698**

Q.2 Find the average of 326, 210, 133, 96, 87 and 57.

Ans
✗ 1. 152.5
✗ 2. 153.5
✓ 3. 151.5
✗ 4. 150.5

Question ID : **4410091480937**
Option 1 ID : **4410095850868**
Option 2 ID : **4410095850869**
Option 3 ID : **4410095850867**
Option 4 ID : **4410095850866**

QuickSarkari.com | WhatsApp Channel | Telegram: t.me/quick_sarkari

Q.3 A store listed a pair of socks at ₹60. After reducing the price by 20%, an additional 15% GST was applied. What is the final cost of the socks?

Ans
1. ₹59.50
2. ₹51.20
3. ₹55.80
4. ₹55.20

Question ID : **441009897618**
Option 1 ID : **4410093544545**
Option 2 ID : **4410093544542**
Option 3 ID : **4410093544543**
Option 4 ID : **4410093544544**

Q.4 Gopal has ₹1,323 with him. He divided it between his sons Akshay and Arjun and asked them to invest the money at 10% per annum, compounded annually. It was observed that Akshay and Arjun received the same amount after 15 years and 16 years, respectively. How much (in ₹) did Gopal give to Arjun?

Ans
1. 630
2. 793
3. 480
4. 693

Question ID : **441009573631**
Option 1 ID : **4410092249644**
Option 2 ID : **4410092249647**
Option 3 ID : **4410092249646**
Option 4 ID : **4410092249645**

Q.5 In what ratio must a grocer mix two varieties of wheat worth ₹95 per kg and ₹146 per kg so that if he sells the mixture at ₹149 per kg he may gain 49%?

Ans
1. 46:5
2. 56:10
3. 47:2
4. 48:6

Question ID : **441009580209**
Option 1 ID : **4410092275962**
Option 2 ID : **4410092275965**
Option 3 ID : **4410092275964**
Option 4 ID : **4410092275963**

QuickSarkari.com | WhatsApp Channel | Telegram: t.me/quick_sarkari

Q.6 Given that $79^{0.19} = x$, $79^{0.45} = y$ and $x^z = y^2$, then the value of z is close to:

Ans
1. 3.1
2. 6.45
3. 4.74
4. 3.24

Question ID : **441009560424**
Option 1 ID : **4410092196966**
Option 2 ID : **4410092196965**
Option 3 ID : **4410092196963**
Option 4 ID : **4410092196964**

Q.7 The following bar graph shows the number of vehicles sold by five different companies in the year 2020.

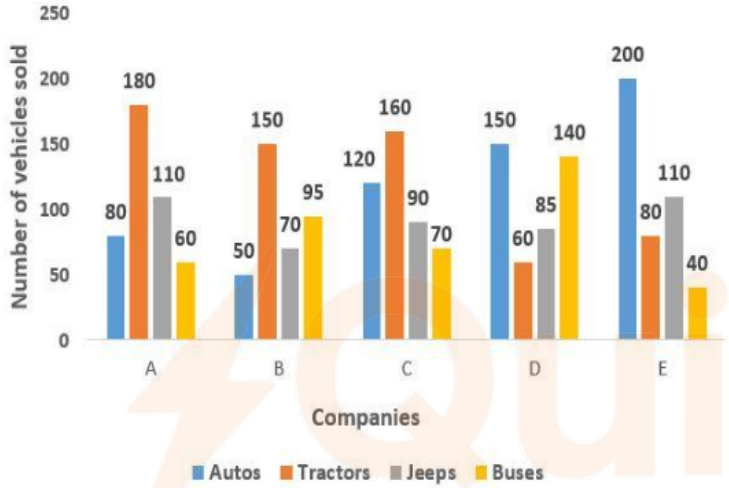


Find the ratio of the number of autos sold by Companies B and D together to the number of tractors sold by Companies E and D together.

Ans
1. 7 : 10
2. 7 : 5
3. 10 : 7
4. 5 : 7

Question ID : **4410091512269**
Option 1 ID : **4410095973171**
Option 2 ID : **4410095973170**
Option 3 ID : **4410095973169**
Option 4 ID : **4410095973168**

QuickSarkari.com | WhatsApp Channel | Telegram: t.me/quick_sarkari

Q.8 In what ratio should a 20% salt solution be mixed with a 50% salt solution to obtain a 30% salt solution?

Ans
✗ 1. 3 : 1
✗ 2. 1 : 2
✓ 3. 2 : 1
✗ 4. 1 : 3

Question ID : **4410091528322**
Option 1 ID : **4410096036480**
Option 2 ID : **4410096036481**
Option 3 ID : **4410096036479**
Option 4 ID : **4410096036482**

Q.9 Simplify $(8.5 \times 3.2 \div 2.56 + 81 \text{ of } \frac{1}{9} - \frac{6}{5})$.

Ans
✓ 1. 18.425
✗ 2. 18.825
✗ 3. 18.625
✗ 4. 18.225

Question ID : **4410091486888**
Option 1 ID : **4410095873956**
Option 2 ID : **4410095873958**
Option 3 ID : **4410095873957**
Option 4 ID : **4410095873955**

Q.10 Veer had ₹1,323 with him. He divided it between his sons Nitin and Pravin and asked them to invest the money at 10% per annum, compounded annually. It was observed that Nitin and Pravin received the same amount after 16 years and 17 years, respectively. How much (in ₹) did Veer give to Pravin?

Ans
✓ 1. 630
✗ 2. 693
✗ 3. 793
✗ 4. 480

Question ID : **441009573630**
Option 1 ID : **4410092249640**
Option 2 ID : **4410092249641**
Option 3 ID : **4410092249643**
Option 4 ID : **4410092249642**

QuickSarkari.com | WhatsApp Channel | Telegram: t.me/quick_sarkari

Q.11 Find the simple interest (in ₹) on ₹3000 as a sum borrowed at 7% per year rate of interest for 2 years.1694

Ans
✗ 1. 360
✗ 2. 380
✓ 3. 420
✗ 4. 460

Question ID : **441009852976**
Option 1 ID : **4410093364878**
Option 2 ID : **4410093364879**
Option 3 ID : **4410093364876**
Option 4 ID : **4410093364877**

Q.12 Simplify:
$\sqrt{2025} - 31^2 + 27^2$

Ans
✗ 1. −195
✗ 2. −129
✗ 3. 59
✓ 4. −187

Question ID : **4410091506836**
Option 1 ID : **4410095951749**
Option 2 ID : **4410095951747**
Option 3 ID : **4410095951746**
Option 4 ID : **4410095951748**

Q.13 360 grams of sugar solution has 20% of sugar in it. How much sugar should be added to make it 50% in the solution?

Ans
✗ 1. 224 grams
✗ 2. 212 grams
✗ 3. 218 grams
✓ 4. 216 grams

Question ID : **4410091481025**
Option 1 ID : **4410095851233**
Option 2 ID : **4410095851230**
Option 3 ID : **4410095851232**
Option 4 ID : **4410095851231**

QuickSarkari

Q.14 Simplify: $\dfrac{\frac{9}{2} \div \frac{5}{2} \times \frac{3}{2}}{3 \div \frac{5}{2} \text{ of } \frac{1}{2}}$

Ans
✗ 1. 3.325
✓ 2. 1.125
✗ 3. 4.425
✗ 4. 2.225

Question ID : **4410091486928**
Option 1 ID : **4410095874117**
Option 2 ID : **4410095874115**
Option 3 ID : **4410095874118**
Option 4 ID : **4410095874116**

Q.15 Find the sum of the squares of the first 15 natural numbers.

Ans
✗ 1. 1120
✗ 2. 1420
✗ 3. 1200
✓ 4. 1240

Question ID : **4410091551403**
Option 1 ID : **4410096127978**
Option 2 ID : **4410096127977**
Option 3 ID : **4410096127975**
Option 4 ID : **4410096127976**

Q.16 Which of the following numbers is divisible by 8?

Ans
✓ 1. 7192
✗ 2. 8436
✗ 3. 5318
✗ 4. 6524

Question ID : **4410091507890**
Option 1 ID : **4410095956219**
Option 2 ID : **4410095956218**
Option 3 ID : **4410095956220**
Option 4 ID : **4410095956217**

QuickSarkari

Q.17 The following charts represent the expenses (in percentage) done on different heads in the month of April and May by an employee, whereas X, Y, P, R, and M represent the school fee, savings, bills, grocery, and miscellaneous respectively.

Salary of April = ₹2,20,000 and Salary of May = ₹2,30,000

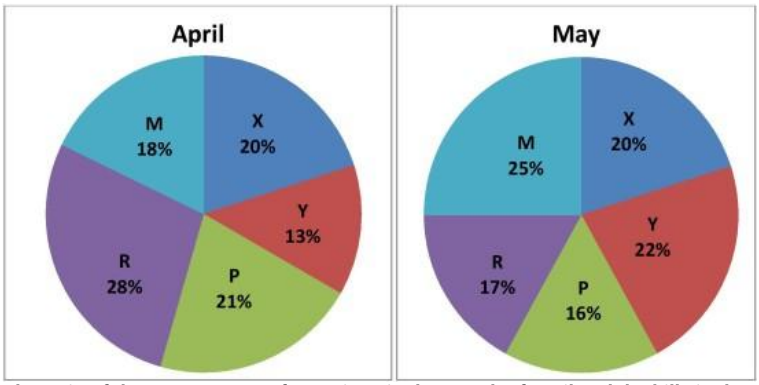


The ratio of the amount spent for savings in the month of April and the bills in the month of May is:

Ans
✔ 1. 143:184
✘ 2. 184:143
✘ 3. 151:173
✘ 4. 173:151

Question ID : **4410091544743**
Option 1 ID : **4410096102031**
Option 2 ID : **4410096102032**
Option 3 ID : **4410096102033**
Option 4 ID : **4410096102034**

Q.18 A worker can complete a task in 12 days, and another worker can complete the same task in 15 days. They work together for 4 days, and then the first worker leaves. How many more days will the second worker need to finish the remaining work?

Ans
✘ 1. 5 days
✘ 2. 7 days
✔ 3. 6 days
✘ 4. 8 days

Question ID : **4410091528532**
Option 1 ID : **4410096037288**
Option 2 ID : **4410096037290**
Option 3 ID : **4410096037287**
Option 4 ID : **4410096037289**

QuickSarkari.com | WhatsApp Channel | Telegram: t.me/quick_sarkari

Q.19 In a test, B got 54 marks while A got 75 marks, out of 100 maximum marks. What percentage of A's marks was B's marks?

Ans
✗ 1. 138.89%
✗ 2. 75%
✗ 3. 111.25%
✓ 4. 72%

Question ID : **441009857264**
Option 1 ID : **4410093382029**
Option 2 ID : **4410093382031**
Option 3 ID : **4410093382030**
Option 4 ID : **4410093382028**

Q.20 Two numbers have HCF = 3 and LCM = 1728. If one number is 27, find the other number.

Ans
✓ 1. 192
✗ 2. 64
✗ 3. 144
✗ 4. 96

Question ID : **4410091507779**
Option 1 ID : **4410095955824**
Option 2 ID : **4410095955821**
Option 3 ID : **4410095955823**
Option 4 ID : **4410095955822**

Section : **Arithmetical and Numerical Ability1**

Q.1 A conical tent has a radius of 7 m and a height of 24 m. What is the curved surface area of the tent? (Take $\pi = \frac{22}{7}$)

Ans
✗ 1. 600 m²
✓ 2. 550 m²
✗ 3. 660 m²
✗ 4. 528 m²

Question ID : **4410091550374**
Option 1 ID : **4410096123961**
Option 2 ID : **4410096123960**
Option 3 ID : **4410096123962**
Option 4 ID : **4410096123959**

QuickSarkari.com | WhatsApp Channel | Telegram: t.me/quick_sarkari

Q.2 The dimensions of a cuboid are 14cm × 7cm × 5cm. Find i

Ans
✔ 1. 406
✗ 2. 412
✗ 3. 408
✗ 4. 410

Question ID : **4410091500662**
Option 1 ID : **4410095927555**
Option 2 ID : **4410095927557**
Option 3 ID : **4410095927556**
Option 4 ID : **4410095927554**

Q.3 **A square field has its perimeter equal to 8√55 m. Find its area.**

Ans
✔ 1. 220 $m^2$
✗ 2. 230 $m^2$
✗ 3. 200 $m^2$
✗ 4. 210 $m^2$

Question ID : **4410091497301**
Option 1 ID : **4410095914311**
Option 2 ID : **4410095914312**
Option 3 ID : **4410095914309**
Option 4 ID : **4410095914310**

Q.4 **A cylindrical pipe has an inner radius of 7 cm and a length of 20 cm. Find the volume of water that can flow through the pipe in one fill. (Take π = $\frac{22}{7}$)**

Ans
✗ 1. 3200 $cm^3$
✗ 2. 3140 $cm^3$
✗ 3. 3300 $cm^3$
✔ 4. 3080 $cm^3$

Question ID : **4410091550490**
Option 1 ID : **4410096124421**
Option 2 ID : **4410096124420**
Option 3 ID : **4410096124419**
Option 4 ID : **4410096124422**

Quick Sarkari

Q.5 A shopkeeper buys a bag for ₹850. Due to slight damage, he sells it for ₹782. Find the percentage loss.

Ans
✔ 1. 8%
✘ 2. 7.2%
✘ 3. 7.5%
✘ 4. 6%

Question ID : **4410091506828**
Option 1 ID : **4410095951705**
Option 2 ID : **4410095951703**
Option 3 ID : **4410095951704**
Option 4 ID : **4410095951702**

Q.6 Two taps can fill a cistern in 2 hours and 32 hours respectively. A third tap can empty it in 2 hours. How long (in hours) will it take to fill three-fourth of the empty cistern, if all of them are opened together?3973

Ans
✘ 1. 48
✘ 2. 96
✘ 3. 72
✔ 4. 24

Question ID : **441009897286**
Option 1 ID : **4410093543215**
Option 2 ID : **4410093543217**
Option 3 ID : **4410093543216**
Option 4 ID : **4410093543214**

Q.7 A shopkeeper bought six identical mobile phones for ₹39,000, and sold two of the mobile phones for ₹26,000. Find the gain percentage on the sale of the two mobile phones.

Ans
✘ 1. 99%
✘ 2. 97%
✘ 3. 103%
✔ 4. 100%

Question ID : **441009577773**
Option 1 ID : **4410092266221**
Option 2 ID : **4410092266219**
Option 3 ID : **4410092266220**
Option 4 ID : **4410092266218**

QuickSarkari

Q.8 The length of each side of an equilateral triangle is X cm. If th
then the area increases by $\sqrt{3}(1+\sqrt{3})$ cm$^2$, then the value o

Ans
✔ 1. 3
✘ 2. 4
✘ 3. 2
✘ 4. 6

Question ID : **4410091539321**
Option 1 ID : **4410096080620**
Option 2 ID : **4410096080621**
Option 3 ID : **4410096080619**
Option 4 ID : **4410096080622**

Q.9 A cylinder has curved surface area equal to four times the area of its base. If the circumference of the base is 44 cm, find the height of the cylinder. (Use $\pi = \frac{22}{7}$)

Ans
✔ 1. 14 cm
✘ 2. 10.5 cm
✘ 3. 17 cm
✘ 4. 22 cm

Question ID : **4410091504311**
Option 1 ID : **4410095941708**
Option 2 ID : **4410095941709**
Option 3 ID : **4410095941707**
Option 4 ID : **4410095941706**

Q.10 The monthly income of A and B is in the ratio 5:7. If A's income is ₹25,000, what is B's income? And how much more does B earn than A?

Ans
✘ 1. ₹40,000; ₹15,000 more
✘ 2. ₹30,000; ₹5,000 more
✔ 3. ₹35,000; ₹10,000 more
✘ 4. ₹45,000; ₹20,000 more

Question ID : **4410091535768**
Option 1 ID : **4410096066309**
Option 2 ID : **4410096066307**
Option 3 ID : **4410096066308**
Option 4 ID : **4410096066310**

QuickSarkari.com | WhatsApp Channel | Telegram: t.me/quick_sarkari

Q.11 Vinit and Druv invest ₹18,500 and ₹27,750, respectively, in a business. They share profits in the ratio of their investments. If the profit at the end of the year is ₹11,250, what is Druv's share?

Ans
✔ 1. ₹6,750
✘ 2. ₹7,500
✘ 3. ₹8,250
✘ 4. ₹5,250

Question ID : **4410091493714**
Option 1 ID : **4410095900469**
Option 2 ID : **4410095900470**
Option 3 ID : **4410095900471**
Option 4 ID : **4410095900468**

Q.12 A and B together can do a piece of work in 18 days and A alone can do it in 26 days. In how much time could B alone do it?

Ans
✘ 1. 54.5 days
✘ 2. 52.5 days
✔ 3. 58.5 days
✘ 4. 56.5 days

Question ID : **4410091493841**
Option 1 ID : **4410095900981**
Option 2 ID : **4410095900980**
Option 3 ID : **4410095900983**
Option 4 ID : **4410095900982**

Q.13 Divide ₹17,500 into three parts in such a way that half of the first part, one-fourth of the second part and one-eighth of the third part are equal. What is the value of the first part (in ₹)?

Ans
✘ 1. 2300
✘ 2. 2200
✔ 3. 2500
✘ 4. 2800

Question ID : **441009546005**
Option 1 ID : **4410092139417**
Option 2 ID : **4410092139419**
Option 3 ID : **4410092139416**
Option 4 ID : **4410092139418**

QuickSarkari.com | WhatsApp Channel | Telegram: t.me/quick_sarkari

Q.14 A cyclist covers a distance of 90 km in 3 hours. If he wants to cover 120 km at the same speed, how much time will he take?

Ans
✗ 1. 3.6 hours
✓ 2. 4 hours
✗ 3. 4.5 hours
✗ 4. 3.5 hours

Question ID : **4410091550202**
Option 1 ID : **4410096123275**
Option 2 ID : **4410096123277**
Option 3 ID : **4410096123278**
Option 4 ID : **4410096123276**

Q.15 A cube and a cuboid have equal volumes. If the edge of the cube is 8 cm, and the dimensions of the cuboid are 16 cm × 4 cm × h cm, then find the height (h) of the cuboid (in cm).

Ans
✗ 1. 9
✗ 2. 6
✗ 3. 10
✓ 4. 8

Question ID : **4410091500665**
Option 1 ID : **4410095927568**
Option 2 ID : **4410095927566**
Option 3 ID : **4410095927569**
Option 4 ID : **4410095927567**

Q.16 A shopkeeper marks an article at ₹90 and sells at a discount of 10%. He also gives a gift worth ₹5. If he still makes 25% profit, then the cost price is:

Ans
✗ 1. ₹50.80
✗ 2. ₹40.80
✓ 3. ₹60.80
✗ 4. ₹70.80

Question ID : **4410091487003**
Option 1 ID : **4410095874416**
Option 2 ID : **4410095874415**
Option 3 ID : **4410095874417**
Option 4 ID : **4410095874418**

QuickSarkari.com | WhatsApp Channel | Telegram: t.me/quick_sarkari

Q.17 The list price of a refrigerator is ₹60800. It is sold to a retailer after two successive discounts of 25% and 10%. The retailer wants to earn a profit of 15% on his cost price after allowing a 40% discount (on its new list price) to the customer. At what price should he list the refrigerator?

Ans
✗ 1. ₹78841
✗ 2. ₹78799
✓ 3. ₹78660
✗ 4. ₹78583

Question ID : **4410091915755**
Option 1 ID : **4410093617273**
Option 2 ID : **4410093617274**
Option 3 ID : **4410093617271**
Option 4 ID : **4410093617272**

Q.18 The third proportion of 12 and 6 is:

Ans
✗ 1. 4
✗ 2. 2
✓ 3. 3
✗ 4. 6

Question ID : **4410091519111**
Option 1 ID : **4410095999723**
Option 2 ID : **4410095999725**
Option 3 ID : **4410095999722**
Option 4 ID : **4410095999724**

Q.19 The radius of a right circular cone is 4.1 cm and slant height is 0.49 m, then what is its lateral surface area?

$(\text{Use } \pi = \frac{22}{7})$

Ans
✓ 1. 631.4 $cm^2$
✗ 2. 531.4 $cm^2$
✗ 3. 731.4 $cm^2$
✗ 4. 431.4 $cm^2$

Question ID : **4410091497382**
Option 1 ID : **4410095914635**
Option 2 ID : **4410095914634**
Option 3 ID : **4410095914636**
Option 4 ID : **4410095914633**

QuickSarkari

Q.20 A boat travels 30 km downstream in 2 hours and the same distance upstream in 3 hours. If the boat then travels 48 km downstream and 48 km upstream, how much total time will it take?

Ans
✗ 1. 10 hours
✓ 2. 8 hours
✗ 3. 7 hours
✗ 4. 9 hours

Question ID : **4410091562852**
Option 1 ID : **4410096172980**
Option 2 ID : **4410096172979**
Option 3 ID : **4410096172978**
Option 4 ID : **4410096172977**

Section : **English Language and Comprehension**

Q.1 In the following question, a statement divided into different segments is given. Rearrange all the segments to form a coherent and meaningful statement.
A – across the sunny garden,
B – the children ran laughing,
C – chasing butterflies
D – under the old oak tree
E – and playing happily

Ans
✗ 1. C D E A B
✗ 2. B E C A D
✓ 3. B C A E D
✗ 4. B C E A D

Question ID : **4410091483384**
Option 1 ID : **4410095860452**
Option 2 ID : **4410095860451**
Option 3 ID : **4410095860449**
Option 4 ID : **4410095860450**

Q.2 Select the option that can be used as a one word substitute for the underlined words.

She is known as a/an <u>person who is selfless and concerned for the welfare of others</u>.

Ans
✓ 1. Altruist
✗ 2. Humanist
✗ 3. Egoist
✗ 4. Philatelist

Question ID : **4410091505416**
Option 1 ID : **4410095946061**
Option 2 ID : **4410095946063**
Option 3 ID : **4410095946060**
Option 4 ID : **4410095946062**

Quick Sarkari

Q.3 **Complete the sentence with the most suitable pair of adjectives.**

**The committee's report was both _____ and _____, offering a detailed analysis supported by verifiable data.**

Ans
✗ 1. brief, misleading
✗ 2. lengthy, biased
✗ 3. vague, emotional
✓ 4. concise, objective

Question ID : **4410091483246**
Option 1 ID : **4410095859910**
Option 2 ID : **4410095859907**
Option 3 ID : **4410095859909**
Option 4 ID : **4410095859908**

Q.4 **Choose the correct option to complete the sentence.**

**The _____ king was loved by his people, while the _____ ruler was feared by all.**

Ans
✗ 1. naive, astute
✓ 2. benevolent, tyrannical
✗ 3. spineless, condescending
✗ 4. servile, haughty

Question ID : **4410091481013**
Option 1 ID : **4410095851183**
Option 2 ID : **4410095851182**
Option 3 ID : **4410095851184**
Option 4 ID : **4410095851185**

Q.5 **Identify the correct one-word substitution for the phrase below.**

**A person who believes that war and violence are unjustifiable.**

Ans
✗ 1. Visionary
✓ 2. Pacifist
✗ 3. Revisionist
✗ 4. Pragmatist

Question ID : **4410091482458**
Option 1 ID : **4410095856822**
Option 2 ID : **4410095856820**
Option 3 ID : **4410095856819**
Option 4 ID : **4410095856821**

QuickSarkari.com | WhatsApp Channel | Telegram: t.me/quick_sarkari

Q.6 In the given question, a statement divided into different segments is given. Rearrange all the segments to form a coherent statement.
Among adolescents (O) / between prolonged screen exposure (P) / the report clearly established (Q) / and declining attention spans (R) / a direct link (S)

Ans
✗ 1. S – Q – P – R – O
✗ 2. Q – P – S – R – O
✓ 3. Q – S – P – R – O
✗ 4. Q – S – R – P – O

Question ID : **4410091499161**
Option 1 ID : **4410095921544**
Option 2 ID : **4410095921543**
Option 3 ID : **4410095921542**
Option 4 ID : **4410095921545**

Q.7 A statement is divided into different segments. The first segment is fixed. Rearrange the other segments to form a coherent and meaningful sentence.

The researcher documented
P. to ensure data accuracy
Q. throughout the experiment
R. each stage of the process
S. using advanced recording tools

Ans
✗ 1. RSPQ
✗ 2. RSQP
✗ 3. SRQP
✓ 4. RQPS

Question ID : **4410091482476**
Option 1 ID : **4410095856892**
Option 2 ID : **4410095856891**
Option 3 ID : **4410095856893**
Option 4 ID : **4410095856894**

Q.8 A statement divided into different segments is given. Rearrange all the segments to form a coherent statement.

(A) to Fort Monroe came two decades ago / (B) a tide of liberation across half of Europe / (C) the flight of fugitive slaves / (D) when a minor East German bureaucratic foul-up loosed

Ans
✗ 1. BCAD
✗ 2. CBDA
✗ 3. BDAC
✓ 4. CADB

Question ID : **4410091605900**
Option 1 ID : **4410096342645**
Option 2 ID : **4410096342647**
Option 3 ID : **4410096342646**
Option 4 ID : **4410096342644**

Q.9 Choose the correct option to complete the sentence.

She completed the marathon _____ suffering from severe leg cramps.

Ans
1. because of
2. despite
3. instead of
4. according to

Question ID : **4410091482949**
Option 1 ID : **4410095858761**
Option 2 ID : **4410095858762**
Option 3 ID : **4410095858763**
Option 4 ID : **4410095858764**

Q.10 Complete the sentence with the most suitable pair of adjectives.

The climate in the desert is extremely _____; the days are scorching, while the nights can be surprisingly _____.

Ans
1. tropical, warm
2. arid, chilly
3. misty, breezy
4. humid, balmy

Question ID : **4410091483248**
Option 1 ID : **4410095859917**
Option 2 ID : **4410095859916**
Option 3 ID : **4410095859918**
Option 4 ID : **4410095859915**

Q.11 Complete the following sentences by choosing the correct forms of the verbs.

The wildlife researchers _____ tracking the migration patterns of the birds for months and _____ recorded significant changes in their behavior.

Ans
1. have / had
2. had been / have
3. has been / has
4. have been / have

Question ID : **4410091507531**
Option 1 ID : **4410095954728**
Option 2 ID : **4410095954727**
Option 3 ID : **4410095954726**
Option 4 ID : **4410095954725**

QuickSarkari.com | WhatsApp Channel | Telegram: t.me/quick_sarkari

Q.12 Select the correct one-word substitute for the given expression.

A person who runs away or escapes from the law or danger

Ans
✗ 1. Prisoner
✓ 2. Fugitive
✗ 3. Refugee
✗ 4. Vagabond

Question ID : **4410091484289**
Option 1 ID : **4410095864063**
Option 2 ID : **4410095864062**
Option 3 ID : **4410095864061**
Option 4 ID : **4410095864064**

Q.13 Choose the one-word substitution for the given phrase.

A person who studies ancient human history and prehistoric cultures through excavation.

Ans
✗ 1. Anthropologist
✗ 2. Geologist
✗ 3. Paleontologist
✓ 4. Archaeologist

Question ID : **4410091482435**
Option 1 ID : **4410095856723**
Option 2 ID : **4410095856726**
Option 3 ID : **4410095856725**
Option 4 ID : **4410095856724**

Q.14 In the given question, a statement divided into different segments is given. The first segment is fixed. Rearrange the other segments to form a coherent and meaningful sentence.

The young artist painted / blending shades of blue and gold (P) / inspired by the evening sky (Q) / with delicate brush strokes (R) / to create a sense of calm (S)

Ans
✗ 1. PRQS
✗ 2. RQPS
✗ 3. RSPQ
✓ 4. PRSQ

Question ID : **4410091482482**
Option 1 ID : **4410095856916**
Option 2 ID : **4410095856915**
Option 3 ID : **4410095856917**
Option 4 ID : **4410095856918**

Q.15 **Which of the following sentences correctly uses the Future Continuous Tense?**

Ans
✗ 1. By this time tomorrow, I am travelling to Delhi.

✗ 2. By this time tomorrow, I will travel to Delhi.

✗ 3. By this time tomorrow, I will have travelled to Delhi.

✓ 4. By this time tomorrow, I will be travelling to Delhi.

Question ID : **4410091483293**
Option 1 ID : **4410095860094**
Option 2 ID : **4410095860091**
Option 3 ID : **4410095860092**
Option 4 ID : **4410095860093**

Q.16 **Choose the option that best substitutes the underlined expression with one word, without changing the meaning.**

**His apology sounded <u>insincere and lacking genuine feeling</u>.**

Ans
✗ 1. artificial

✗ 2. polite

✓ 3. hollow

✗ 4. formal

Question ID : **4410091627532**
Option 1 ID : **4410096428414**
Option 2 ID : **4410096428413**
Option 3 ID : **4410096428415**
Option 4 ID : **4410096428416**

Q.17 **Select the correct one-word substitution for the given description.**

**One who is indifferent to pleasure or pain.**

Ans
✗ 1. Pessimist

✗ 2. Hermit

✗ 3. Atheist

✓ 4. Stoic

Question ID : **4410091482430**
Option 1 ID : **4410095856703**
Option 2 ID : **4410095856705**
Option 3 ID : **4410095856706**
Option 4 ID : **4410095856704**

QuickSarkari.com | WhatsApp Channel | Telegram: t.me/quick_sarkari

Q.18 **Complete the following sentence by choosing the correct form of the verb.**

**The astronauts _____ the experiments on the ISS when the communication signal was restored.**

Ans
- ✗ 1. conducted
- ✗ 2. have conducted
- ✗ 3. will conduct
- ✓ 4. were conducting

Question ID : **4410091507496**
Option 1 ID : **4410095954585**
Option 2 ID : **4410095954587**
Option 3 ID : **4410095954588**
Option 4 ID : **4410095954586**

Q.19 **A statement is divided into different segments. The first segment is fixed. Rearrange the other segments to form a coherent and meaningful sentence.**

**The detective observed**
**P. every clue at the scene**
**Q. leading to the final breakthrough**
**R. with analytical precision**
**S. as the case grew more complex**

Ans
- ✗ 1. PSRQ
- ✗ 2. PRQS
- ✗ 3. PQRS
- ✓ 4. PRSQ

Question ID : **4410091482471**
Option 1 ID : **4410095856874**
Option 2 ID : **4410095856871**
Option 3 ID : **4410095856873**
Option 4 ID : **4410095856872**

Q.20 **Choose the correct one-word substitution for the given phrase.**

**A person who studies the origin and history of words.**

Ans
- ✗ 1. Cryptographer
- ✗ 2. Paleographer
- ✓ 3. Etymologist
- ✗ 4. Philologist

Question ID : **4410091482454**
Option 1 ID : **4410095856805**
Option 2 ID : **4410095856806**
Option 3 ID : **4410095856803**
Option 4 ID : **4410095856804**

Section : **English Language and Comprehension1**

Q.1 **Select the correct option to change the following sentence from active to passive:**
**The chef cooks the meal.**

Ans
✗ 1. The meal was cook by the chef.

✗ 2. The meal cooks the chef.

✓ 3. The meal is cooked by the chef.

✗ 4. The meal cooked by the chef.

Question ID : **4410091618959**
Option 1 ID : **4410096394708**
Option 2 ID : **4410096394711**
Option 3 ID : **4410096394709**
Option 4 ID : **4410096394710**

Q.2 **Choose the correct direct speech form of the given sentence.**

**She told her team that they would need to revise the strategy immediately if the market indicators continued to fall.**

Ans
✗ 1. She said to her team, "You need to revise the strategy immediately if the market indicators continue to fall."

✓ 2. She said to her team, "You will need to revise the strategy immediately if the market indicators continue to fall."

✗ 3. She told her team, "You needed to revise the strategy immediately if the market indicators continued to fall."

✗ 4. She said to her team, "You will need to revised the strategy immediately if the market indicators continued to fall."

Question ID : **4410091485475**
Option 1 ID : **4410095868365**
Option 2 ID : **4410095868367**
Option 3 ID : **4410095868368**
Option 4 ID : **4410095868366**

Q.3 **Identify the sentence that uses the correct active voice.**

Ans
✗ 1. The lion was shot by the hunter the following day.

✗ 2. She was being given a book for her birthday.

✓ 3. Her grandmother looked after her.

✗ 4. She have written a long letter to her friend.

Question ID : **4410091484756**
Option 1 ID : **4410095865732**
Option 2 ID : **4410095865733**
Option 3 ID : **4410095865734**
Option 4 ID : **4410095865731**

QuickSarkari.com | WhatsApp Channel | Telegram: t.me/quick_sarkari

Q.4 **Select the wrongly spelt word from the given alternatives.**

Ans
1. Discipline ✗
2. Hierarchy ✗
3. Accomodate ✓
4. Perseverance ✗

Question ID : **4410091648466**
Option 1 ID : **4410096510094**
Option 2 ID : **4410096510095**
Option 3 ID : **4410096510093**
Option 4 ID : **4410096510092**

Q.5 **Select the option that rectifies the INCORRECTLY spelt word in the given sentence.**

**She wrote a sincere letter to acknowledge the assistence she received during the conference.**

Ans
1. conferance ✗
2. acknowladge ✗
3. sincire ✗
4. assistance ✓

Question ID : **4410091522731**
Option 1 ID : **4410096014048**
Option 2 ID : **4410096014046**
Option 3 ID : **4410096014045**
Option 4 ID : **4410096014047**

Q.6 **Choose the correct option to complete the sentence:**
**They _____ a movie last night.**

Ans
1. watched ✓
2. watches ✗
3. watch ✗
4. watching ✗

Question ID : **4410091618869**
Option 1 ID : **4410096394349**
Option 2 ID : **4410096394351**
Option 3 ID : **4410096394348**
Option 4 ID : **4410096394350**

QuickSarkari.com | WhatsApp Channel | Telegram: t.me/quick_sarkari

Q.7 **Select the INCORRECTLY spelt word from the given sentence. If there are no error, select 'No correction required'.**

**His argument was both contradictory and illogical, leading to a lot of confusion among the audience.**

Ans
- ✗ 1. contradictory
- ✗ 2. argument
- ✓ 3. No correction required
- ✗ 4. illogical

Question ID : **44100935020**
Option 1 ID : **441009139439**
Option 2 ID : **441009139438**
Option 3 ID : **441009139441**
Option 4 ID : **441009139440**

Q.8 **Select the wrongly spelt word.**

Ans
- ✗ 1. Entrepreneur
- ✓ 2. Acommodating
- ✗ 3. Lieutenant
- ✗ 4. Rhythm

Question ID : **4410091482406**
Option 1 ID : **4410095856608**
Option 2 ID : **4410095856609**
Option 3 ID : **4410095856610**
Option 4 ID : **4410095856607**

Q.9 **Identify the misspelt word in the given sentence.**

**The documentary highlighted the urgent need to conserve endengered species across fragile ecosystems.**

Ans
- ✓ 1. endengered
- ✗ 2. documentary
- ✗ 3. highlighted
- ✗ 4. ecosystems

Question ID : **4410091600289**
Option 1 ID : **4410096320841**
Option 2 ID : **4410096320839**
Option 3 ID : **4410096320840**
Option 4 ID : **4410096320842**

QuickSarkari.com | WhatsApp Channel | Telegram: t.me/quick_sarkari

Q.10 **Complete the following sentence by choosing the correct direct speech form.**

**Indirect: The chef said that he would prepare a special dessert for the foreign delegates that evening.**

**Direct: The chef said, "___ a special dessert for the foreign delegates ___ evening."**

Ans
✔ 1. I will prepare / this
✘ 2. I will have prepared / this
✘ 3. I would prepare / that
✘ 4. I am preparing / that

Question ID : **4410091507069**
Option 1 ID : **4410095952710**
Option 2 ID : **4410095952713**
Option 3 ID : **4410095952712**
Option 4 ID : **4410095952711**

**Comprehension:**

Read the passage and answer the questions that follow.

In the modern world, digital devices dominate almost every waking hour of human life. From checking messages the moment we wake up to endlessly scrolling through social media feeds, our minds are rarely given the chance to rest or reflect. Constant connectivity has blurred the boundary between work, leisure, and personal space. A digital detox refers to the conscious decision to step away from screens for a limited period in order to restore balance and mental clarity. Numerous studies indicate that excessive screen time contributes to stress, anxiety, sleep disturbances, and a reduced attention span, particularly among young people. Disconnecting from digital devices, even briefly, allows individuals to regain focus, strengthen real-life relationships, and rediscover creativity. Importantly, the aim of a digital detox is not to reject technology altogether but to develop a healthier and more mindful relationship with it. In a world obsessed with notifications, alerts, and instant responses, true peace and self-awareness often begin when the screen finally goes dark.

**SubQuestion No : 11**

Q.11 **Choose the most appropriate title for the passage.**

Ans
✘ 1. The Internet Never Sleeps
✘ 2. Benefits of Online Gaming
✘ 3. Living Without Gadgets
✔ 4. Finding Balance Through a Digital Detox

Question ID : **4410091487885**
Option 1 ID : **4410095877657**
Option 2 ID : **4410095877656**
Option 3 ID : **4410095877655**
Option 4 ID : **4410095877658**

Quick Sarkari

**Comprehension:**

Read the passage and answer the questions that follow.

In the modern world, digital devices dominate almost every waking hour of human life. From checking messages the moment we wake up to endlessly scrolling through social media feeds, our minds are rarely given the chance to rest or reflect. Constant connectivity has blurred the boundary between work, leisure, and personal space. A digital detox refers to the conscious decision to step away from screens for a limited period in order to restore balance and mental clarity. Numerous studies indicate that excessive screen time contributes to stress, anxiety, sleep disturbances, and a reduced attention span, particularly among young people. Disconnecting from digital devices, even briefly, allows individuals to regain focus, strengthen real-life relationships, and rediscover creativity. Importantly, the aim of a digital detox is not to reject technology altogether but to develop a healthier and more mindful relationship with it. In a world obsessed with notifications, alerts, and instant responses, true peace and self-awareness often begin when the screen finally goes dark.

**SubQuestion No : 12**

**Q.12 Identify the tone of the passage.**

**Ans**

✗ 1. Indifferent and humorous

✗ 2. Angry and serious

✓ 3. Reflective and persuasive

✗ 4. Sarcastic and unfriendly

Question ID : **4410091487886**
Option 1 ID : **4410095877666**
Option 2 ID : **4410095877664**
Option 3 ID : **4410095877663**
Option 4 ID : **4410095877665**

**Comprehension:**

Read the passage and answer the questions that follow.

In the modern world, digital devices dominate almost every waking hour of human life. From checking messages the moment we wake up to endlessly scrolling through social media feeds, our minds are rarely given the chance to rest or reflect. Constant connectivity has blurred the boundary between work, leisure, and personal space. A digital detox refers to the conscious decision to step away from screens for a limited period in order to restore balance and mental clarity. Numerous studies indicate that excessive screen time contributes to stress, anxiety, sleep disturbances, and a reduced attention span, particularly among young people. Disconnecting from digital devices, even briefly, allows individuals to regain focus, strengthen real-life relationships, and rediscover creativity. Importantly, the aim of a digital detox is not to reject technology altogether but to develop a healthier and more mindful relationship with it. In a world obsessed with notifications, alerts, and instant responses, true peace and self-awareness often begin when the screen finally goes dark.

**SubQuestion No : 13**

**Q.13 Select the sentence that correctly uses the word 'clarity'.**

**Ans**

✗ 1. The clarity was mesmerising.

✗ 2. The clarity sang beautifully on stage.

✓ 3. Meditation helps the mind gain clarity.

✗ 4. He tried to clarity his mistake.

Question ID : **4410091487887**
Option 1 ID : **4410095877670**
Option 2 ID : **4410095877668**
Option 3 ID : **4410095877667**
Option 4 ID : **4410095877669**

**Comprehension:**

Read the passage and answer the questions that follow.

In the modern world, digital devices dominate almost every waking hour of human life. From checking messages the moment we wake up to endlessly scrolling through social media feeds, our minds are rarely given the chance to rest or reflect. Constant connectivity has blurred the boundary between work, leisure, and personal space. A digital detox refers to the conscious decision to step away from screens for a limited period in order to restore balance and mental clarity. Numerous studies indicate that excessive screen time contributes to stress, anxiety, sleep disturbances, and a reduced attention span, particularly among young people. Disconnecting from digital devices, even briefly, allows individuals to regain focus, strengthen real-life relationships, and rediscover creativity. Importantly, the aim of a digital detox is not to reject technology altogether but to develop a healthier and more mindful relationship with it. In a world obsessed with notifications, alerts, and instant responses, true peace and self-awareness often begin when the screen finally goes dark.

**SubQuestion No : 14**

**Q.14 According to the passage, what is the main purpose of a digital detox?**

**Ans**

✗ 1. To improve the functioning of digital devices

✗ 2. To completely avoid the use of technology

✗ 3. To increase one's time on social media

✓ 4. To restore balance and mental clarity by taking breaks from screens

Question ID : **4410091487888**
Option 1 ID : **4410095877674**
Option 2 ID : **4410095877671**
Option 3 ID : **4410095877673**
Option 4 ID : **4410095877672**

**Comprehension:**

Read the passage and answer the questions that follow.

In the modern world, digital devices dominate almost every waking hour of human life. From checking messages the moment we wake up to endlessly scrolling through social media feeds, our minds are rarely given the chance to rest or reflect. Constant connectivity has blurred the boundary between work, leisure, and personal space. A digital detox refers to the conscious decision to step away from screens for a limited period in order to restore balance and mental clarity. Numerous studies indicate that excessive screen time contributes to stress, anxiety, sleep disturbances, and a reduced attention span, particularly among young people. Disconnecting from digital devices, even briefly, allows individuals to regain focus, strengthen real-life relationships, and rediscover creativity. Importantly, the aim of a digital detox is not to reject technology altogether but to develop a healthier and more mindful relationship with it. In a world obsessed with notifications, alerts, and instant responses, true peace and self-awareness often begin when the screen finally goes dark.

**SubQuestion No : 15**

**Q.15 Which of these is a real-life example of the 'digital detox' described in the passage?**

**Ans**

✗ 1. Keeping your laptop on all night

✗ 2. Messaging friends while doing homework

✗ 3. Buying a newer, faster smartphone

✓ 4. Turning off your phone during a hike

Question ID : **4410091487889**
Option 1 ID : **4410095877675**
Option 2 ID : **4410095877677**
Option 3 ID : **4410095877676**
Option 4 ID : **4410095877678**

**Comprehension:**

Read the passage and answer the questions that follow.

In India, the road test for getting a driving licence examines whether the person is able to handle a vehicle of certain specification, largely a skill test, rather than one of his knowledge and execution of safe driving practices. Most accidents are collisions from the back — whereas exemplar driving tests in other countries filter out tailgating tendencies and arbitrary lane changing. The system of certifying and monitoring drivers and vehicles is broken and corrupt. The SaveLIFE Foundation advocates License Seva so that they are transparent, digitised, and ensure good driver skills and safety awareness. One in five accidents are head-on collisions, which have happened even on four-lane highways, indicating wrong-side driving and the state of road dividers. There are potholes, dangerous curves, drainage systems, bridge parapets and concrete objects, but no crash barriers or energy absorbers. Collision-risk warning devices are relatively inexpensive and can be mandated on commercial vehicles.

**SubQuestion No : 16**

**Q.16 Identify the central idea conveyed by the passage.**

**Ans**

✗ 1. The benefits of modern highways

✗ 2. The causes of traffic jams in cities

✓ 3. The flaws in India's driving licence system and road safety measures

✗ 4. The poor condition of public transport

Question ID : **4410091496932**
Option 1 ID : **4410095912845**
Option 2 ID : **4410095912842**
Option 3 ID : **4410095912844**
Option 4 ID : **4410095912843**

**Comprehension:**

Read the passage and answer the questions that follow.

In India, the road test for getting a driving licence examines whether the person is able to handle a vehicle of certain specification, largely a skill test, rather than one of his knowledge and execution of safe driving practices. Most accidents are collisions from the back — whereas exemplar driving tests in other countries filter out tailgating tendencies and arbitrary lane changing. The system of certifying and monitoring drivers and vehicles is broken and corrupt. The SaveLIFE Foundation advocates License Seva so that they are transparent, digitised, and ensure good driver skills and safety awareness. One in five accidents are head-on collisions, which have happened even on four-lane highways, indicating wrong-side driving and the state of road dividers. There are potholes, dangerous curves, drainage systems, bridge parapets and concrete objects, but no crash barriers or energy absorbers. Collision-risk warning devices are relatively inexpensive and can be mandated on commercial vehicles.

**SubQuestion No : 17**

**Q.17 Choose the statement that presents a fact mentioned in the passage.**

**Ans**

✗ 1. Collision-risk warning devices are costly and rare.

✓ 2. One in five accidents in India are head-on collisions.

✗ 3. India has the safest driving test system in the world.

✗ 4. Most highways in India have perfect crash barriers.

Question ID : **4410091496933**
Option 1 ID : **4410095912848**
Option 2 ID : **4410095912846**
Option 3 ID : **4410095912847**
Option 4 ID : **4410095912849**

**Comprehension:**

Read the passage and answer the questions that follow.

In India, the road test for getting a driving licence examines whether the person is able to handle a vehicle of certain specification, largely a skill test, rather than one of his knowledge and execution of safe driving practices. Most accidents are collisions from the back — whereas exemplar driving tests in other countries filter out tailgating tendencies and arbitrary lane changing. The system of certifying and monitoring drivers and vehicles is broken and corrupt. The SaveLIFE Foundation advocates License Seva so that they are transparent, digitised, and ensure good driver skills and safety awareness. One in five accidents are head-on collisions, which have happened even on four-lane highways, indicating wrong-side driving and the state of road dividers. There are potholes, dangerous curves, drainage systems, bridge parapets and concrete objects, but no crash barriers or energy absorbers. Collision-risk warning devices are relatively inexpensive and can be mandated on commercial vehicles.

**SubQuestion No : 18**

**Q.18 Identify the tone or attitude of the writer in the passage.**

**Ans**

✗ 1. Humorous and satirical

✗ 2. Optimistic and bright

✗ 3. Indifferent and neutral

✓ 4. Critical and concerned

Question ID : **4410091496934**
Option 1 ID : **4410095912850**
Option 2 ID : **4410095912853**
Option 3 ID : **4410095912852**
Option 4 ID : **4410095912851**

**Comprehension:**

Read the passage and answer the questions that follow.

In India, the road test for getting a driving licence examines whether the person is able to handle a vehicle of certain specification, largely a skill test, rather than one of his knowledge and execution of safe driving practices. Most accidents are collisions from the back — whereas exemplar driving tests in other countries filter out tailgating tendencies and arbitrary lane changing. The system of certifying and monitoring drivers and vehicles is broken and corrupt. The SaveLIFE Foundation advocates License Seva so that they are transparent, digitised, and ensure good driver skills and safety awareness. One in five accidents are head-on collisions, which have happened even on four-lane highways, indicating wrong-side driving and the state of road dividers. There are potholes, dangerous curves, drainage systems, bridge parapets and concrete objects, but no crash barriers or energy absorbers. Collision-risk warning devices are relatively inexpensive and can be mandated on commercial vehicles.

**SubQuestion No : 19**

**Q.19 Choose the antonym of the word 'transparent' as used in the passage.**

**Ans**

✓ 1. Opaque

✗ 2. Clear

✗ 3. Visible

✗ 4. Honest

Question ID : **4410091496935**
Option 1 ID : **4410095912856**
Option 2 ID : **4410095912855**
Option 3 ID : **4410095912854**
Option 4 ID : **4410095912857**

**Comprehension:**

Read the passage and answer the questions that follow.

In India, the road test for getting a driving licence examines whether the person is able to handle a vehicle of certain specification, largely a skill test, rather than one of his knowledge and execution of safe driving practices. Most accidents are collisions from the back — whereas exemplar driving tests in other countries filter out tailgating tendencies and arbitrary lane changing. The system of certifying and monitoring drivers and vehicles is broken and corrupt. The SaveLIFE Foundation advocates License Seva so that they are transparent, digitised, and ensure good driver skills and safety awareness. One in five accidents are head-on collisions, which have happened even on four-lane highways, indicating wrong-side driving and the state of road dividers. There are potholes, dangerous curves, drainage systems, bridge parapets and concrete objects, but no crash barriers or energy absorbers. Collision-risk warning devices are relatively inexpensive and can be mandated on commercial vehicles.

**SubQuestion No : 20**

**Q.20 Select the inference that can be drawn from the passage.**

**Ans**

✗ 1. The licence system effectively prevents rash driving.

✗ 2. The system is fair and transparent.

✗ 3. The driving test in India focuses more on safety awareness than on driving skill.

✓ 4. The present driving licence system in India neglects essential safe driving practices.

Question ID : **4410091496936**
Option 1 ID : **4410095912859**
Option 2 ID : **4410095912861**
Option 3 ID : **4410095912858**
Option 4 ID : **4410095912860**

Section : **Hindi Language and Comprehension**

**Q.1 .....तुम फिर से आ गए ?**

**उपरोक्त वाक्य में रिक्त स्थान की पूर्ति के लिए उचित कारक शब्द का चयन करें –**

**Ans**

✗ 1. राधा

✗ 2. साहब

✗ 3. लड़के

✓ 4. अरे!

Question ID : **441009353999**
Option 1 ID : **4410091382236**
Option 2 ID : **4410091382237**
Option 3 ID : **4410091382239**
Option 4 ID : **4410091382238**

QuickSarkari.com | WhatsApp Channel | Telegram: t.me/quick_sarkari

Q.2 नीचे दिए गये मुहावरे का सही अर्थ चुनें-
'अभयदान देना'

Ans
✗ 1. किसी से न डरना
✗ 2. किसी को डराना
✗ 3. दान में अन्न देना
✓ 4. भय से बचाने का वचन देना

Question ID : **441009175872**
Option 1 ID : **441009695511**
Option 2 ID : **441009695510**
Option 3 ID : **441009695508**
Option 4 ID : **441009695509**

Q.3 गीता _____पौधों में पानी डाला।
उपरोक्त वाक्य में रिक्त स्थान की पूर्ति के लिए उचित कारक शब्द का चयन करें-

Ans
✓ 1. ने
✗ 2. के लिए
✗ 3. के
✗ 4. पर

Question ID : **441009353998**
Option 1 ID : **4410091382235**
Option 2 ID : **4410091382233**
Option 3 ID : **4410091382232**
Option 4 ID : **4410091382234**

Q.4 दिए गए विकल्पों में से उचित कारक द्वारा वाक्य पूर्ण करें।
वे भृगु ____ वंशज हैं।

Ans
✓ 1. के
✗ 2. से
✗ 3. की
✗ 4. का

Question ID : **441009353983**
Option 1 ID : **4410091382172**
Option 2 ID : **4410091382174**
Option 3 ID : **4410091382175**
Option 4 ID : **4410091382173**

QuickSarkari.com | WhatsApp Channel | Telegram: t.me/quick_sarkari

Q.5 संख्यावाचक विशेषण का प्रयोग करते हुए वाक्य पूर्ण करें -
.....बन्दर कहाँ गया

Ans
✗ 1. छोटा
✗ 2. मोटा
✗ 3. काला
✓ 4. तीसरा

Question ID : **441009205465**
Option 1 ID : **441009808063**
Option 2 ID : **441009808062**
Option 3 ID : **441009808064**
Option 4 ID : **441009808065**

Q.6 निम्नलिखित अव्यवस्थित क्रम वाले वाक्य-खण्डों को क,ख,ग,घ की संज्ञा दी गई है। इन्हें ध्यान से पढ़कर,दिए गए विकल्पों में से उचित वाक्य क्रम वाला विकल्प चुनिए –

क - हमें स्वस्थ और खुशहाल जीवन जीने के लिए
ख -पेड़ लगाकर, जल संसाधनों का संरक्षण कर
ग -तथा ऊर्जा की बचत कर
घ –पर्यावरण को संरक्षित रखना चाहिए

Ans
✗ 1. घ ग क ख
✗ 2. ख क घ ग
✓ 3. क ख ग घ
✗ 4. ग क ख घ

Question ID : **441009399512**
Option 1 ID : **4410091563500**
Option 2 ID : **4410091563501**
Option 3 ID : **4410091563499**
Option 4 ID : **4410091563498**

Q.7 नीचे दिए गए वाक्यांश के लिए चार विकल्प में से किसी एक सार्थक शब्द का चुनाव कीजिए।
मांस से युक्त5132

Ans
✗ 1. सर्वज्ञ
✗ 2. सर्वहारा
✓ 3. सामिष
✗ 4. समवयस्क

Question ID : **441009476887**
Option 1 ID : **4410091862961**
Option 2 ID : **4410091862964**
Option 3 ID : **4410091862962**
Option 4 ID : **4410091862963**

QuickSarkari.com | WhatsApp Channel | Telegram: t.me/quick_sarkari

Q.8 निम्नलिखित मुहावरे का सही अर्थ पहचानें।
अक्ल ठिकाने ला देना5820

Ans
✗ 1. सतर्क कर देना
✗ 2. डांट देना
✗ 3. डरा देना
✓ 4. समझा देना

Question ID : **441009446100**
Option 1 ID : **4410091743082**
Option 2 ID : **4410091743083**
Option 3 ID : **4410091743084**
Option 4 ID : **4410091743081**

Q.9 'तेल देखो, तेल की धार देखो' लोकोक्ति का क्या अर्थ है?

Ans
✗ 1. सदा लक्ष्य प्राप्ति की चिन्ता करनी चाहिए
✗ 2. प्रतिष्ठा के अनुरूप काम करना चाहिए
✗ 3. मूर्खतापूर्ण कार्य करना
✓ 4. बदलती परिस्थितियों पर नज़र रखना

Question ID : **4410091529773**
Option 1 ID : **4410096042185**
Option 2 ID : **4410096042183**
Option 3 ID : **4410096042184**
Option 4 ID : **4410096042186**

Q.10 'जो अवश्य होने वाला हो' वाक्यांश के लिए सार्थक शब्द चयनित कीजिये-

Ans
✓ 1. अवश्यंभावी
✗ 2. प्रारब्ध
✗ 3. आवश्यक
✗ 4. निश्चित

Question ID : **441009354629**
Option 1 ID : **4410091384756**
Option 2 ID : **4410091384759**
Option 3 ID : **4410091384757**
Option 4 ID : **4410091384758**

Q.11 ' उपकार को मानने वाला' वाक्यांश के लिए एक सार्थक शब्द होगा –

Ans
✗ 1. कातर
✓ 2. कृतज्ञ
✗ 3. कृतघ्न
✗ 4. कनिष्ठ

Question ID : **441009400877**
Option 1 ID : **4410091568948**
Option 2 ID : **4410091568945**
Option 3 ID : **4410091568946**
Option 4 ID : **4410091568947**

Quick Sarkari

Q.12 निम्नलिखित वाक्य के उचित क्रम का निर्धारण कीजिए-
'से आया निबंध शब्द हिन्दी में संस्कृत है।'

Ans
✗ 1. हिन्दी में निबंध शब्द से आया है।संस्कृत
✗ 2. में संस्कृत से आया है। निबंध शब्द हिन्दी
✓ 3. निबंध शब्द हिन्दी में संस्कृत से आया है।
✗ 4. शब्द हिन्दी निबंध में संस्कृत से आया है।

Question ID : **4410091267608**
Option 1 ID : **4410095003144**
Option 2 ID : **4410095003143**
Option 3 ID : **4410095003145**
Option 4 ID : **4410095003142**

Q.13 रेखांकित वाक्यांश के लिए सार्थक शब्द क्या है?

किसी पर विजय प्राप्त करने की इच्छा रखने वाला व्यक्ति अक्सर अहंकार में डूब जाता है।

Ans
✗ 1. मेधावी
✗ 2. संचित
✓ 3. जिगीषु
✗ 4. मितभाषी

Question ID : **4410091288984**
Option 1 ID : **4410095087795**
Option 2 ID : **4410095087796**
Option 3 ID : **4410095087794**
Option 4 ID : **4410095087793**

Q.14 इस घर .....बहुत सामान है ।

उपरोक्त वाक्य में रिक्त स्थान की पूर्ति के लिए उचित कारक शब्द का चयन करें –

Ans
✓ 1. में
✗ 2. को
✗ 3. की
✗ 4. का

Question ID : **441009353993**
Option 1 ID : **4410091382214**
Option 2 ID : **4410091382215**
Option 3 ID : **4410091382213**
Option 4 ID : **4410091382212**

QuickSarkari.com | WhatsApp Channel | Telegram: t.me/quick_sarkari

Q.15 निम्नलिखित लोकोक्ति का अर्थ बताएं -
'अंधे के आगे रोना, अपने दीदा खोना'

Ans
✔ 1. ना समझ को समझाने का व्यर्थ प्रयास करना
✘ 2. कार्य करने न करने दोनों में खराबी
✘ 3. ढोंगी आदमी चापलूस हुआ करता है
✘ 4. अपात्र को कोई बहुमूल्य चीज मिल जाना

Question ID : **4410091511221**
Option 1 ID : **4410095968935**
Option 2 ID : **4410095968937**
Option 3 ID : **4410095968936**
Option 4 ID : **4410095968934**

Q.16 नीचे दिए गए मुहावरे का चार विकल्पों में से कोई एक सही विकल्प चुनकर अर्थ स्पष्ट कीजिए।
चूड़ियाँ पहनना -

Ans
✔ 1. कायर होना
✘ 2. धोखा देना
✘ 3. बहुत काम होना
✘ 4. जोश आना

Question ID : **44100949070**
Option 1 ID : **441009195577**
Option 2 ID : **441009195578**
Option 3 ID : **441009195579**
Option 4 ID : **441009195576**

Q.17 दिए गए वाक्य में उचित सम्प्रदान कारक का चयन करके रिक्त स्थान की पूर्ति करें-

शिक्षक ने विद्यार्थियों के उज्ज्वल भविष्य --------मार्गदर्शन दिया।

Ans
✘ 1. को
✔ 2. के लिए
✘ 3. ने
✘ 4. में

Question ID : **441009400919**
Option 1 ID : **4410091569113**
Option 2 ID : **4410091569114**
Option 3 ID : **4410091569116**
Option 4 ID : **4410091569115**

QuickSarkari.com | WhatsApp Channel | Telegram: t.me/quick_sarkari

Q.18 निम्नलिखित में से एक मुहावरा-युग्म सुमेलित नहीं है-

Ans
✗ 1. ऊँची फेंकना-बहुत अधिक गप मारना
✓ 2. कमर कसना –हार स्वीकार का लेना
✗ 3. एक मुँह दो बात-बात पर टिका न रहना
✗ 4. काठ का उल्लू-महामूर्ख

Question ID : **441009368715**
Option 1 ID : **4410091440833**
Option 2 ID : **4410091440835**
Option 3 ID : **4410091440834**
Option 4 ID : **4410091440836**

Q.19 प्रविशेषण का प्रयोग किस वाक्य में हुआ है ?

Ans
✗ 1. चिड़िया बहुत बोलती हैं।
✓ 2. वह बहुत अच्छी लड़की है।
✗ 3. उसने सुंदर-सुंदर चित्र बनाया।
✗ 4. वह सुंदर चित्र बनाती है।

Question ID : **441009448058**
Option 1 ID : **4410091750901**
Option 2 ID : **4410091750902**
Option 3 ID : **4410091750904**
Option 4 ID : **4410091750903**

Q.20 'जो हाथ से लिखा गया हो' वाक्यांश के लिए सार्थक शब्द होगा -5095

Ans
✓ 1. हस्तलिखित
✗ 2. हस्तांतरित
✗ 3. हस्तामलक
✗ 4. हास्यास्पद

Question ID : **441009476850**
Option 1 ID : **4410091862815**
Option 2 ID : **4410091862813**
Option 3 ID : **4410091862816**
Option 4 ID : **4410091862814**

Section : **Hindi Language and Comprehension1**

QuickSarkari.com | WhatsApp Channel | Telegram: t.me/quick_sarkari

Q.1 निम्नलिखित वाक्य में 'स्वकीय' के लिए उचित विलोम शब्द की पूर्ति कीजिए-
स्वकीय व्यक्ति आत्मीय होता है, जबकि _____पराया होता है।

Ans
✗ 1. पारिवारिक
✓ 2. परकीया
✗ 3. सगा
✗ 4. अपनाया

Question ID : **4410091497816**
Option 1 ID : **4410095916272**
Option 2 ID : **4410095916275**
Option 3 ID : **4410095916273**
Option 4 ID : **4410095916274**

Q.2 दिये गये वाक्य के किस भाग में त्रुटि है?
चाँदनी रात में नर्मदा नदी का आर्कषण अद्भुत होता है।

Ans
✗ 1. नर्मदा नदी का
✗ 2. चाँदनी रात में
✗ 3. अद्भुत होता है।
✓ 4. आर्कषण

Question ID : **4410091530519**
Option 1 ID : **4410096045160**
Option 2 ID : **4410096045159**
Option 3 ID : **4410096045162**
Option 4 ID : **4410096045161**

Q.3 निम्नलिखित में से सही वर्तनी वाला वाक्य चुनिए-

Ans
✓ 1. कठिन समय में धैर्य आवश्यक है।
✗ 2. कठिन समय में धैर आवश्यक है।
✗ 3. कठिन समय में धैर्य्य आवश्यक है।
✗ 4. कठिन समय में धर्य आवश्यक है।

Question ID : **4410091499835**
Option 1 ID : **4410095924235**
Option 2 ID : **4410095924236**
Option 3 ID : **4410095924237**
Option 4 ID : **4410095924234**

QuickSarkari.com | WhatsApp Channel | Telegram: t.me/quick_sarkari

Q.4 दिये गए वाक्य के रेखांकित शब्द का विलोम शब्द चुनिए –

कार्यशाला में नए कर्मचारियों के लिए <u>अग्रज</u> अधिकारी ने अपने अनुभव साझा किए।

Ans
✗ 1. अजर
✓ 2. अनुज
✗ 3. अज
✗ 4. दनुज

Question ID : **4410091530989**
Option 1 ID : **4410096047025**
Option 2 ID : **4410096047026**
Option 3 ID : **4410096047023**
Option 4 ID : **4410096047024**

Q.5 निम्नलिखित वाक्यों में से किन्हीं तीन वाक्य में वर्तनी संबंधी अशुद्धि है,जबकि एक वाक्य शुद्ध है ।
दिए गए विकल्पों में से शुद्ध वर्तनी वाले वाक्य का चयन कीजिए-

Ans
✓ 1. विभीषण राम का बहुत बड़ा भक्त था |
✗ 2. विभीषन राम का बहुत बड़ा भक्त था |
✗ 3. विभीशण राम का बहुत बड़ा भक्त था |
✗ 4. बिभीषण राम का बहुत बड़ा भक्त था |

Question ID : **44100959318**
Option 1 ID : **441009236184**
Option 2 ID : **441009236182**
Option 3 ID : **441009236183**
Option 4 ID : **441009236181**

Q.6 निम्नलिखित में से किस वाक्य में 'मिलन' शब्द के पर्याय का प्रयोग नहीं हुआ है?

Ans
✗ 1. कल उसकी अपने पुराने मित्र से मुलाकात हुई।
✓ 2. बसंत हर किसी का मन मोह लेती है।
✗ 3. आज हमारा यहाँ मिल जाना भी एक शुभ संयोग है।
✗ 4. दोनों नदियों का संगम बड़ा सुंदर दृश्य था।

Question ID : **4410091499922**
Option 1 ID : **4410095924583**
Option 2 ID : **4410095924582**
Option 3 ID : **4410095924585**
Option 4 ID : **4410095924584**

QuickSarkari.com | WhatsApp Channel | Telegram: t.me/quick_sarkari

Q.7 निम्नलिखित वाक्य के रेखांकित शब्द का विलोम बताएं -
'वीरेश बिजली विभाग का अधिकारी है।'

Ans
✗ 1. प्रमुख
✗ 2. अधिष्ठित
✓ 3. अनधिकारी
✗ 4. मुख्य

Question ID : **4410091519097**
Option 1 ID : **4410095999659**
Option 2 ID : **4410095999661**
Option 3 ID : **4410095999660**
Option 4 ID : **4410095999658**

Q.8 निम्नलिखित वाक्य के रेखांकित शब्द का विलोम बताएं -
'आज घर की मरम्मत का कार्य पूर्ण हो गया है।'

Ans
✓ 1. अपूर्ण
✗ 2. पूरित
✗ 3. पूर्णता
✗ 4. पूरा

Question ID : **4410091519181**
Option 1 ID : **4410096000037**
Option 2 ID : **4410096000035**
Option 3 ID : **4410096000036**
Option 4 ID : **4410096000034**

Q.9 वर्तनी की दृष्टि से शुद्ध वाक्य कौन-सा है?

Ans
✗ 1. वह साधु सबमें सामान भाव रखता है।
✓ 2. मेरे घर के निकट मंदिर है।
✗ 3. उसके मन में दवंद्व चल रहा था।
✗ 4. विद्यार्थी आपने गुरु के दर्शनाभिलाशी हैं।

Question ID : **4410091499845**
Option 1 ID : **4410095924279**
Option 2 ID : **4410095924278**
Option 3 ID : **4410095924281**
Option 4 ID : **4410095924280**

QuickSarkari.com | WhatsApp Channel | Telegram: t.me/quick_sarkari

Q.10 निम्नलिखित वाक्य में 'स्वाभिमान' के लिए उचित विलोम शब्द की पूर्ति कीजिए-
स्वाभिमान रखने वाला व्यक्ति किसी का_____ सह नहीं सकता।

Ans
✗ 1. असहमति
✗ 2. हीनभाव
✗ 3. विरोध
✓ 4. अपमान

Question ID : **4410091498217**
Option 1 ID : **4410095917892**
Option 2 ID : **4410095917893**
Option 3 ID : **4410095917891**
Option 4 ID : **4410095917890**

**Comprehension:**

दिए गए गद्यांश के आधार पर पूछे गए प्रश्नों का उत्तर दीजिए-
पैशन (Passion) एक प्रकार का तीव्र लगाव है। इसे दीवानगी, आवेगमय लगाव, प्रबल लगाव आदि भी कहा जा सकता है। माना जाता है कि जीवन अच्छी तरह जीने या कोई बड़ा काम सफलतापूर्वक संपन्न करने के लिए 'पैशन' का होना जरूरी है। कोई व्यक्ति बस जी लेता है, कर्तव्य निभा लेता है या किसी के साथ संबंध निर्वाह कर लेता है। जबकि कोई अपने कुछ खास काम या रिश्तों के प्रति तीव्र लगाव से भरा होता है। लगाव-वेग से भरा व्यक्ति अच्छे लोगों को आकर्षित करता है, क्योंकि वह गहरी उत्प्रेरणाओं से भरा होता है। वह दत्तचित्त होकर यात्रा में सुंदर दृश्य देखता है, अपनी रुचि का काम बड़ी सुंदरता से करता है, किसी रिश्ते की गहराई को समझता है। उसका पैशन लोगों के मन को छू जाता है, क्योंकि वह निष्ठा से भरा होता है। माखनलाल चतुर्वेदी का शहीदों से, महादेवी वर्मा का पशु-पक्षियों से, पंत का पहाड़ों से, अज्ञेय का ऐतिहासिक जगहों से और नागार्जुन का युवाओं से तीव्र लगाव था।

**SubQuestion No : 11**

Q.11 'पैशन' शब्द का अर्थ गद्यांश के अनुसार क्या है?

Ans
✗ 1. मनोरंजन
✗ 2. नफरत
✓ 3. तीव्र या प्रबल लगाव
✗ 4. कर्तव्य

Question ID : **4410091497616**
Option 1 ID : **4410095915531**
Option 2 ID : **4410095915528**
Option 3 ID : **4410095915530**
Option 4 ID : **4410095915529**

Quick Sarkari

**Comprehension:**

दिए गए गद्यांश के आधार पर पूछे गए प्रश्नों का उत्तर दीजिए-
पैशन (Passion) एक प्रकार का तीव्र लगाव है। इसे दीवानगी, आवेगमय लगाव, प्रबल लगाव आदि भी कहा जा सकता है। माना जाता है कि जीवन अच्छी तरह जीने या कोई बड़ा काम सफलतापूर्वक संपन्न करने के लिए 'पैशन' का होना जरूरी है। कोई व्यक्ति बस जी लेता है, कर्तव्य निभा लेता है या किसी के साथ संबंध निर्वाह कर लेता है। जबकि कोई अपने कुछ खास काम या रिश्तों के प्रति तीव्र लगाव से भरा होता है। लगाव-वेग से भरा व्यक्ति अच्छे लोगों को आकर्षित करता है, क्योंकि वह गहरी उत्प्रेरणाओं से भरा होता है। वह दत्तचित्त होकर यात्रा में सुंदर दृश्य देखता है, अपनी रुचि का काम बड़ी सुंदरता से करता है, किसी रिश्ते की गहराई को समझता है। उसका पैशन लोगों के मन को छू जाता है, क्योंकि वह निष्ठा से भरा होता है। माखनलाल चतुर्वेदी का शहीदों से, महादेवी वर्मा का पशु-पक्षियों से, पंत का पहाड़ों से, अज्ञेय का ऐतिहासिक जगहों से और नागार्जुन का युवाओं से तीव्र लगाव था।

**SubQuestion No : 12**

**Q.12 गद्यांश के अनुसार कौन 'तीव्र लगाव' से भरे थे?**

**Ans**

✗ 1. केवल महादेवी वर्मा और अज्ञेय

✗ 2. केवल पंत

✗ 3. केवल नागार्जुन

✓ 4. माखनलाल चतुर्वेदी, महादेवी वर्मा, पंत, अज्ञेय और नागार्जुन

Question ID : **4410091497617**
Option 1 ID : **4410095915533**
Option 2 ID : **4410095915532**
Option 3 ID : **4410095915534**
Option 4 ID : **4410095915535**

**Comprehension:**

दिए गए गद्यांश के आधार पर पूछे गए प्रश्नों का उत्तर दीजिए-
पैशन (Passion) एक प्रकार का तीव्र लगाव है। इसे दीवानगी, आवेगमय लगाव, प्रबल लगाव आदि भी कहा जा सकता है। माना जाता है कि जीवन अच्छी तरह जीने या कोई बड़ा काम सफलतापूर्वक संपन्न करने के लिए 'पैशन' का होना जरूरी है। कोई व्यक्ति बस जी लेता है, कर्तव्य निभा लेता है या किसी के साथ संबंध निर्वाह कर लेता है। जबकि कोई अपने कुछ खास काम या रिश्तों के प्रति तीव्र लगाव से भरा होता है। लगाव-वेग से भरा व्यक्ति अच्छे लोगों को आकर्षित करता है, क्योंकि वह गहरी उत्प्रेरणाओं से भरा होता है। वह दत्तचित्त होकर यात्रा में सुंदर दृश्य देखता है, अपनी रुचि का काम बड़ी सुंदरता से करता है, किसी रिश्ते की गहराई को समझता है। उसका पैशन लोगों के मन को छू जाता है, क्योंकि वह निष्ठा से भरा होता है। माखनलाल चतुर्वेदी का शहीदों से, महादेवी वर्मा का पशु-पक्षियों से, पंत का पहाड़ों से, अज्ञेय का ऐतिहासिक जगहों से और नागार्जुन का युवाओं से तीव्र लगाव था।

**SubQuestion No : 13**

**Q.13 प्रस्तुत गद्यांश का केंद्रीय भाव क्या है?**

**Ans**

✗ 1. जीवन में कर्तव्य निभाना ही सबसे बड़ा लक्ष्य है।

✗ 2. सफलता केवल मेहनत से मिलती है।

✓ 3. जीवन को सार्थक बनाने के लिए 'पैशन' यानी प्रबल लगाव आवश्यक है।

✗ 4. रिश्तों में दूरी बनाए रखना ही उचित है।

Question ID : **4410091497618**
Option 1 ID : **4410095915536**
Option 2 ID : **4410095915537**
Option 3 ID : **4410095915539**
Option 4 ID : **4410095915538**

**Comprehension:**

दिए गए गद्यांश के आधार पर पूछे गए प्रश्नों का उत्तर दीजिए-
पैशन (Passion) एक प्रकार का तीव्र लगाव है। इसे दीवानगी, आवेगमय लगाव, प्रबल लगाव आदि भी कहा जा सकता है। माना जाता है कि जीवन अच्छी तरह जीने या कोई बड़ा काम सफलतापूर्वक संपन्न करने के लिए 'पैशन' का होना जरूरी है। कोई व्यक्ति बस जी लेता है, कर्तव्य निभा लेता है या किसी के साथ संबंध निर्वाह कर लेता है। जबकि कोई अपने कुछ खास काम या रिश्तों के प्रति तीव्र लगाव से भरा होता है। लगाव-वेग से भरा व्यक्ति अच्छे लोगों को आकर्षित करता है, क्योंकि वह गहरी उत्प्रेरणाओं से भरा होता है। वह दत्तचित्त होकर यात्रा में सुंदर दृश्य देखता है, अपनी रुचि का काम बड़ी सुंदरता से करता है, किसी रिश्ते की गहराई को समझता है। उसका पैशन लोगों के मन को छू जाता है, क्योंकि वह निष्ठा से भरा होता है। माखनलाल चतुर्वेदी का शहीदों से, महादेवी वर्मा का पशु-पक्षियों से, पंत का पहाड़ों से, अज्ञेय का ऐतिहासिक जगहों से और नागार्जुन का युवाओं से तीव्र लगाव था।

**SubQuestion No : 14**

**Q.14 प्रस्तुत गद्यांश का उचित शीर्षक क्या होगा?**

**Ans**

✗ 1. लगाव का महत्व

✗ 2. जीवन की कठिनाइयाँ

✓ 3. पैशन : जीवन का प्रेरक बल

✗ 4. संबंधों की जटिलता

Question ID : **4410091497619**
Option 1 ID : **4410095915543**
Option 2 ID : **4410095915542**
Option 3 ID : **4410095915541**
Option 4 ID : **4410095915540**

**Comprehension:**

दिए गए गद्यांश के आधार पर पूछे गए प्रश्नों का उत्तर दीजिए-
पैशन (Passion) एक प्रकार का तीव्र लगाव है। इसे दीवानगी, आवेगमय लगाव, प्रबल लगाव आदि भी कहा जा सकता है। माना जाता है कि जीवन अच्छी तरह जीने या कोई बड़ा काम सफलतापूर्वक संपन्न करने के लिए 'पैशन' का होना जरूरी है। कोई व्यक्ति बस जी लेता है, कर्तव्य निभा लेता है या किसी के साथ संबंध निर्वाह कर लेता है। जबकि कोई अपने कुछ खास काम या रिश्तों के प्रति तीव्र लगाव से भरा होता है। लगाव-वेग से भरा व्यक्ति अच्छे लोगों को आकर्षित करता है, क्योंकि वह गहरी उत्प्रेरणाओं से भरा होता है। वह दत्तचित्त होकर यात्रा में सुंदर दृश्य देखता है, अपनी रुचि का काम बड़ी सुंदरता से करता है, किसी रिश्ते की गहराई को समझता है। उसका पैशन लोगों के मन को छू जाता है, क्योंकि वह निष्ठा से भरा होता है। माखनलाल चतुर्वेदी का शहीदों से, महादेवी वर्मा का पशु-पक्षियों से, पंत का पहाड़ों से, अज्ञेय का ऐतिहासिक जगहों से और नागार्जुन का युवाओं से तीव्र लगाव था।

**SubQuestion No : 15**

**Q.15 प्रस्तुत गद्यांश का वास्तविक जीवन से क्या संबंध है?**

**Ans**

✗ 1. वास्तविक जीवन में भावनाओं का कोई महत्व नहीं होता।

✗ 2. वास्तविक जीवन में लगाव से व्यक्ति कमजोर बनता है।

✓ 3. वास्तविक जीवन में किसी काम या रिश्ते के प्रति लगाव व्यक्ति को प्रेरित करता है।

✗ 4. वास्तविक जीवन में केवल धन से सफलता मिलती है।

Question ID : **4410091497620**
Option 1 ID : **4410095915544**
Option 2 ID : **4410095915546**
Option 3 ID : **4410095915547**
Option 4 ID : **4410095915545**

QuickSarkari.com | WhatsApp Channel | Telegram: t.me/quick_sarkari

**Comprehension:**

निम्नलिखित गद्यांश के आधार पर प्रश्नों के उत्तर दें -
भारतीय अंतरिक्ष अनुसंधान संगठन, जिसे आमतौर पर 'इसरो' के नाम से जाना जाता है, यह भारत की प्रमुख राष्ट्रीय अंतरिक्ष एजेंसी है। भारत सरकार अंतरिक्ष के क्षेत्र में प्रमुख अनुसंधान, विकास और अन्वेषण गतिविधियों को निर्देशित करती है। इसरो ने अपने प्रयासों से अंतरिक्ष क्षेत्र में भारत को महत्वपूर्ण स्थान दिलाया और कई महत्त्वपूर्ण प्रौद्योगिकी और अनुसंधान क्षेत्र में प्रगति की इसरो की उपलब्धियाँ भारतीय अंतरिक्ष क्षेत्र के विकास में महत्त्वपूर्ण योगदान दर्शाती हैं। इसरो की स्थापना वर्ष 1969 में अंतरिक्ष प्रौद्योगिकी के विकास को बढ़ावा देने के उद्देश्य से की गई थी। इसका मुख्य उद्देश्य देश के सामाजिक आर्थिक विकास के लिए अंतरिक्ष संबंधित कार्यों का प्रबंधन करना है। इसरो कई विभिन्न क्षेत्रों में महत्त्वपूर्ण भूमिका निभाता है;जैसे संचार, मौसम विज्ञान,रिमोट सेंसिंग, नेविगेशन और वैज्ञानिक अनुसंधान आदि इसका मुख्य लक्ष्य विभिन्न राष्ट्रीय आवश्यकताओं को पूरा करने के लिए अंतरिक्ष प्रौद्योगिकी को आगे बढ़ाना और उसका उपयोग करना है।

**SubQuestion No : 16**

**Q.16 गद्यांश का शीर्षक बताएं -**

**Ans**

✗ 1. प्रौद्योगिकी

✗ 2. अंतरिक्ष

✓ 3. इसरो

✗ 4. अनुसंधान

Question ID : **4410091498596**
Option 1 ID : **4410095919263**
Option 2 ID : **4410095919260**
Option 3 ID : **4410095919261**
Option 4 ID : **4410095919262**

**Comprehension:**

निम्नलिखित गद्यांश के आधार पर प्रश्नों के उत्तर दें -
भारतीय अंतरिक्ष अनुसंधान संगठन, जिसे आमतौर पर 'इसरो' के नाम से जाना जाता है, यह भारत की प्रमुख राष्ट्रीय अंतरिक्ष एजेंसी है। भारत सरकार अंतरिक्ष के क्षेत्र में प्रमुख अनुसंधान, विकास और अन्वेषण गतिविधियों को निर्देशित करती है। इसरो ने अपने प्रयासों से अंतरिक्ष क्षेत्र में भारत को महत्वपूर्ण स्थान दिलाया और कई महत्त्वपूर्ण प्रौद्योगिकी और अनुसंधान क्षेत्र में प्रगति की इसरो की उपलब्धियाँ भारतीय अंतरिक्ष क्षेत्र के विकास में महत्त्वपूर्ण योगदान दर्शाती हैं। इसरो की स्थापना वर्ष 1969 में अंतरिक्ष प्रौद्योगिकी के विकास को बढ़ावा देने के उद्देश्य से की गई थी। इसका मुख्य उद्देश्य देश के सामाजिक आर्थिक विकास के लिए अंतरिक्ष संबंधित कार्यों का प्रबंधन करना है। इसरो कई विभिन्न क्षेत्रों में महत्त्वपूर्ण भूमिका निभाता है;जैसे संचार, मौसम विज्ञान,रिमोट सेंसिंग, नेविगेशन और वैज्ञानिक अनुसंधान आदि इसका मुख्य लक्ष्य विभिन्न राष्ट्रीय आवश्यकताओं को पूरा करने के लिए अंतरिक्ष प्रौद्योगिकी को आगे बढ़ाना और उसका उपयोग करना है।

**SubQuestion No : 17**

**Q.17 इसरो कहाँ की प्रमुख एजेंसी है?**

**Ans**

✗ 1. अमेरिका

✗ 2. जापान

✓ 3. भारत

✗ 4. रूस

Question ID : **4410091498597**
Option 1 ID : **4410095919264**
Option 2 ID : **4410095919265**
Option 3 ID : **4410095919267**
Option 4 ID : **4410095919266**

**Comprehension:**

निम्नलिखित गद्यांश के आधार पर प्रश्नों के उत्तर दें -
भारतीय अंतरिक्ष अनुसंधान संगठन, जिसे आमतौर पर 'इसरो' के नाम से जाना जाता है, यह भारत की प्रमुख राष्ट्रीय अंतरिक्ष एजेंसी है। भारत सरकार अंतरिक्ष के क्षेत्र में प्रमुख अनुसंधान, विकास और अन्वेषण गतिविधियों को निर्देशित करती है। इसरो ने अपने प्रयासों से अंतरिक्ष क्षेत्र में भारत को महत्वपूर्ण स्थान दिलाया और कई महत्त्वपूर्ण प्रौद्योगिकी और अनुसंधान क्षेत्र में प्रगति की इसरो की उपलब्धियाँ भारतीय अंतरिक्ष क्षेत्र के विकास में महत्त्वपूर्ण योगदान दर्शाती हैं। इसरो की स्थापना वर्ष 1969 में अंतरिक्ष प्रौद्योगिकी के विकास को बढ़ावा देने के उद्देश्य से की गई थी। इसका मुख्य उद्देश्य देश के सामाजिक आर्थिक विकास के लिए अंतरिक्ष संबंधित कार्यों का प्रबंधन करना है। इसरो कई विभिन्न क्षेत्रों में महत्त्वपूर्ण भूमिका निभाता है;जैसे संचार, मौसम विज्ञान,रिमोट सेंसिंग, नेविगेशन और वैज्ञानिक अनुसंधान आदि इसका मुख्य लक्ष्य विभिन्न राष्ट्रीय आवश्यकताओं को पूरा करने के लिए अंतरिक्ष प्रौद्योगिकी को आगे बढ़ाना और उसका उपयोग करना है।

**SubQuestion No : 18**

**Q.18 इसरो किस क्षेत्र में महत्त्वपूर्ण भूमिका नहीं निभाता है?**

**Ans**

✗ 1. वैज्ञानिक अनुसंधान

✗ 2. मौसम विज्ञान

✓ 3. राजनीति

✗ 4. संचार

Question ID : **4410091498598**
Option 1 ID : **4410095919271**
Option 2 ID : **4410095919270**
Option 3 ID : **4410095919268**
Option 4 ID : **4410095919269**

**Comprehension:**

निम्नलिखित गद्यांश के आधार पर प्रश्नों के उत्तर दें -
भारतीय अंतरिक्ष अनुसंधान संगठन, जिसे आमतौर पर 'इसरो' के नाम से जाना जाता है, यह भारत की प्रमुख राष्ट्रीय अंतरिक्ष एजेंसी है। भारत सरकार अंतरिक्ष के क्षेत्र में प्रमुख अनुसंधान, विकास और अन्वेषण गतिविधियों को निर्देशित करती है। इसरो ने अपने प्रयासों से अंतरिक्ष क्षेत्र में भारत को महत्वपूर्ण स्थान दिलाया और कई महत्त्वपूर्ण प्रौद्योगिकी और अनुसंधान क्षेत्र में प्रगति की इसरो की उपलब्धियाँ भारतीय अंतरिक्ष क्षेत्र के विकास में महत्त्वपूर्ण योगदान दर्शाती हैं। इसरो की स्थापना वर्ष 1969 में अंतरिक्ष प्रौद्योगिकी के विकास को बढ़ावा देने के उद्देश्य से की गई थी। इसका मुख्य उद्देश्य देश के सामाजिक आर्थिक विकास के लिए अंतरिक्ष संबंधित कार्यों का प्रबंधन करना है। इसरो कई विभिन्न क्षेत्रों में महत्त्वपूर्ण भूमिका निभाता है;जैसे संचार, मौसम विज्ञान,रिमोट सेंसिंग, नेविगेशन और वैज्ञानिक अनुसंधान आदि इसका मुख्य लक्ष्य विभिन्न राष्ट्रीय आवश्यकताओं को पूरा करने के लिए अंतरिक्ष प्रौद्योगिकी को आगे बढ़ाना और उसका उपयोग करना है।

**SubQuestion No : 19**

**Q.19 उपर्युक्त गद्यांश का भाव बताएं -**

**Ans**

✗ 1. इसकी स्थापना अंतरिक्ष प्रौद्योगिकी के विकास को सामान्य बनाने के लिए की गई।

✓ 2. इसरो ने अपने प्रयासों से अंतरिक्ष क्षेत्र में भारत को गौरवान्वित किया है।

✗ 3. इसरो ने धर्म के क्षेत्र में भारत को महत्त्वपूर्ण स्थान दिलाया।

✗ 4. भारतीय अंतरिक्ष क्षेत्र के विकास में इसरो का कोई स्थान नहीं है।

Question ID : **4410091498599**
Option 1 ID : **4410095919275**
Option 2 ID : **4410095919274**
Option 3 ID : **4410095919272**
Option 4 ID : **4410095919273**

**Comprehension:**

निम्नलिखित गद्यांश के आधार पर प्रश्नों के उत्तर दें -
भारतीय अंतरिक्ष अनुसंधान संगठन, जिसे आमतौर पर 'इसरो' के नाम से जाना जाता है, यह भारत की प्रमुख राष्ट्रीय अंतरिक्ष एजेंसी है। भारत सरकार अंतरिक्ष के क्षेत्र में प्रमुख अनुसंधान, विकास और अन्वेषण गतिविधियों को निर्देशित करती है। इसरो ने अपने प्रयासों से अंतरिक्ष क्षेत्र में भारत को महत्वपूर्ण स्थान दिलाया और कई महत्त्वपूर्ण प्रौद्योगिकी और अनुसंधान क्षेत्र में प्रगति की इसरो की उपलब्धियाँ भारतीय अंतरिक्ष क्षेत्र के विकास में महत्त्वपूर्ण योगदान दर्शाती हैं। इसरो की स्थापना वर्ष 1969 में अंतरिक्ष प्रौद्योगिकी के विकास को बढ़ावा देने के उद्देश्य से की गई थी। इसका मुख्य उद्देश्य देश के सामाजिक आर्थिक विकास के लिए अंतरिक्ष संबंधित कार्यों का प्रबंधन करना है। इसरो कई विभिन्न क्षेत्रों में महत्त्वपूर्ण भूमिका निभाता है;जैसे संचार, मौसम विज्ञान,रिमोट सेंसिंग, नेविगेशन और वैज्ञानिक अनुसंधान आदि इसका मुख्य लक्ष्य विभिन्न राष्ट्रीय आवश्यकताओं को पूरा करने के लिए अंतरिक्ष प्रौद्योगिकी को आगे बढ़ाना और उसका उपयोग करना है।

**SubQuestion No : 20**

**Q.20 इसरो की स्थापना किस वर्ष हुई?**

**Ans**

✗ 1. 1990

✓ 2. 1969

✗ 3. 1970

✗ 4. 2003

Question ID : **4410091498600**
Option 1 ID : **4410095919279**
Option 2 ID : **4410095919276**
Option 3 ID : **4410095919278**
Option 4 ID : **4410095919277**

"

Quick Sarkari

Quick Sarkari

## Thank you for studying with QuickSarkari!

Get the latest Sarkari Naukri notifications, admit cards, results, answer keys and free previous-year papers first - follow us on WhatsApp and Telegram.

**Visit www.quicksarkari.com**

**Join our WhatsApp Channel**

https://whatsapp.com/channel/0029VaxxbrREquiPoXTWM229

**Join our Telegram Channel**

https://t.me/quick_sarkari

*Share this PDF with your friends preparing for DSSSB exams.*