DSSSB PREVIOUS YEAR PAPER WITH ANSWER KEY

DSSSB Bailiff

22 February 2026 · Shift 2

डीएसएसएसबी बेलिफ़ – 22 फरवरी 2026, शिफ्ट 2 का प्रश्न पत्र, उत्तर कुंजी सहित

200	120 min	1 / −0.25	EN + HI
Questions / प्रश्न	Duration / समय	Marks per Q / अंक	Language / भाषा

Sections: General intelligence and Reasoning Ability, General Awareness, Arithmetical and Numerical Ability, English Language and Comprehension, Hindi Language and Comprehension

INSIDE THIS PDF / इस PDF में

Question Paper in English + Hindi with Answer Key (correct option marked in green) + answer table Page 2–50
प्रश्न पत्र अंग्रेज़ी + हिंदी में, उत्तर कुंजी सहित (सही विकल्प हरे रंग में) + उत्तर तालिका

Official DSSSB Response Sheet with Answer Key (correct option ticked in green) Page 51–133
आधिकारिक DSSSB रिस्पॉन्स शीट, उत्तर कुंजी सहित (सही विकल्प हरे टिक से)

HOW TO USE THIS PAPER / इस पेपर का उपयोग कैसे करें

1. Attempt the paper first as a timed online mock test (link below).
   पहले नीचे दिए लिंक से इसे टाइमर के साथ ऑनलाइन मॉक टेस्ट के रूप में हल करें।
2. Check your score, section-wise analysis and solutions online.
   ऑनलाइन अपना स्कोर, खंड-वार विश्लेषण और हल देखें।
3. Use this PDF for revision. Correct answers are shown in green.
   दोहराने के लिए इस PDF का उपयोग करें। सही उत्तर हरे रंग में दिए गए हैं।

Attempt this paper as a FREE online mock test
इस पेपर को फ्री ऑनलाइन मॉक टेस्ट के रूप में हल करें – टाइमर, स्कोर और हल के साथ
https://quicksarkari.com/dsssb-bailiff-22-february-2026-shift-2-mock-test/

All DSSSB Bailiff papers and mock tests: **quicksarkari.com/dsssb-mock-test/#bailiff**

Join WhatsApp Channel | Join Telegram Channel

DSSSB Bailiff – Question Paper (English + Hindi)

DSSSB बेलिफ़ – प्रश्न पत्र (अंग्रेज़ी + हिंदी)

Exam held on 22 February 2026, Shift 2 · 200 questions · correct answers marked ✔ in green
परीक्षा तिथि 22 फरवरी 2026, शिफ्ट 2 · 200 प्रश्न · सही उत्तर हरे रंग में ✔ से चिह्नित

> The official paper for this shift was in Hindi. The English version of each question is a translation prepared by QuickSarkari; the language-section questions are shown as asked.
> इस शिफ्ट का आधिकारिक प्रश्न पत्र हिंदी में था। प्रत्येक प्रश्न का अंग्रेज़ी संस्करण QuickSarkari द्वारा तैयार किया गया अनुवाद है; भाषा खंड के प्रश्न मूल रूप में दिए गए हैं।

General intelligence and Reasoning Ability

Q.1 Refer to the following letter series and answer the question that follows. Counting is to be done from left to right only.
(Left) J S A E P L A M I S R E N O T Y Z U Q A G H (Right)
How many such consonants are there, each of which is immediately preceded by a vowel and also immediately followed by a vowel?

निम्नलिखित अक्षर श्रृंखला का संदर्भ लीजिए तथा नीचे दिए गए प्रश्न का उत्तर दीजिए। गिनती केवलबाएं से दाएं की जानी है।
(बाएं) J S A E P L A M I S R E N O T Y Z U Q A G H (दाएं)
ऐसे कितने व्यंजन हैं, जिनमें से प्रत्येक के ठीक पहले एक स्वर और ठीक बाद में भी एक स्वर है?

(1) Three / तीन ✔
(2) One / एक
(3) Four / चार
(4) Two / दो

Q.2 Aadish, Babli, Chetna, Deepika, Ekam, Firoz and Geetika each play a game on different days of the same week, starting from Monday and ending on Sunday. Firoz plays the game on Tuesday. Only three persons play the game between Firoz and Geetika. Deepika plays immediately before Ekam and Chetna plays immediately before Deepika. Babli does not play on the first day.
On which day does Aadish play the game?

आदिश, बबली, चेतना, दीपिका, एकम, फिरोज और गीतिका में से प्रत्येक, सोमवार से शुरू होकर रविवार को समाप्त होने वाले एक ही सप्ताह के अलग-अलग दिन खेल खेलते हैं। फिरोज, मंगलवार को खेल खेलता है। फिरोज और गीतिका के बीच केवल तीन व्यक्ति खेल खेलते हैं। दीपिका, एकम से ठीक पहले खेलती है और चेतना, दीपिका से ठीक पहले खेलती है। बबली पहले दिन नहीं खेलती है।
आदिश किस दिन खेल खेलता है?

(1) Wednesday / बुधवार
(2) Sunday / रविवार
(3) Monday / सोमवार ✔
(4) Thursday / गुरुवार

Q.3 In a row of 82 students sitting facing north, Kajal is at the 19th position from the left end. If Rajesh is sitting 7th to the right of Kajal, then what is the position of Rajesh from the right end of the row?

उत्तर की ओर अभिमुख होकर बैठे 82 विद्यार्थियों की एक पंक्ति में, काजल बाएं छोर से 19वें स्थान पर है। यदि राजेश, काजल के दाएं 7वें स्थान पर बैठा है, तो पंक्ति के दाएं छोर से राजेश का स्थान क्या है?

(1) 58th / 58वां
(2) 57th / 57वां ✔
(3) 56th / 56वां
(4) 59th / 59वां

Q.4 Refer to the following letter-symbol series and answer the question that follows. Counting is to be done from left to right only.
(Left) R E £ O Z @ £ £ C * N % £ E © € & Y T % * N (Right)
How many such letters are there, each of which is immediately preceded by a letter and immediately followed by a symbol?

निम्नलिखित अक्षर-प्रतीक शृंखला का संदर्भ लीजिए और दिए गए प्रश्न का उत्तर दीजिए। गिनतीकेवल बाएँ से दाएँ की जानी चाहिए।
(बाएँ) R E £ O Z @ £ £ C * N % £ E © € & Y T % * N (दाएँ)
ऐसे कितने अक्षर हैं जिनमें से प्रत्येक के ठीक पहले एक अक्षर है और ठीक बाद में एक प्रतीक है?

(1) 4
(2) 5
(3) 2
(4) 3 ✔

Q.5 Refer to the following letter series and answer the question that follows.
(Left) E R A G E L I K U F O M I N E B J V I Z (Right)
How many letters are there in the English alphabetical series between the fourth letter from the right end and the fourth letter from the left end of the series?

निम्नलिखित अक्षर शृंखला का संदर्भ लीजिए और दिए गए प्रश्न का उत्तर दीजिए।
(बाएं) E R A G E L I K U F O M I N E B J V I Z (दाएं)
शृंखला के दाएं छोर से चौथे अक्षर और बाएं छोर से चौथे अक्षर के बीच अंग्रेजी वर्णमाला में कितनेअक्षर हैं?

(1) Three / तीन
(2) Five / पाँच
(3) Four / चार
(4) Two / दो ✔

Q.6 In a certain code language, 'LOIB' is coded as '76' and 'PSLX' is coded as '142'. What is the code for 'YGAK' in the given code language?

एक निश्चित कूट भाषा में, 'LOIB' को '76' के रूप में कूटबद्ध किया जाता है और 'PSLX' को '142' के रूप में कूटबद्ध किया जाता है। दी गई कूट भाषा में 'YGAK' के लिए कूट क्या होगा?

(1) 88 ✔
(2) 73
(3) 80
(4) 94

Q.7 E has two sons, C and F. H is the mother of F. D is the wife of C and she is the mother of B. F is the husband of G and G is the mother of K. How is H related to K?

E के दो पुत्र C और F हैं। H, F की माता है। D, C की पत्नी है और वह B की माता है। F, G का पति हैऔर G, K की माता है। H का K से क्या संबंध है?

(1) Father's mother / पिता की माता ✔
(2) Sister / बहन
(3) Mother's mother / माता की माता
(4) Mother / माता

Q.8 Each vowel in the word 'COURTESY' is replaced by the letter immediately following it in the English alphabetical order and each consonant is replaced by the second letter following it in the English alphabetical order. Which letter will appear exactly twice in the new group of letters thus formed?

शब्द 'COURTESY' के प्रत्येक स्वर को अंग्रेजी वर्णमाला में उसके ठीक बाद आने वाले अक्षर से बदलदिया जाता है और प्रत्येक व्यंजन को अंग्रेजी वर्णमाला में उसके बाद आने वाले दूसरे अक्षर से बदलदिया जाता है। इस प्रकार बने अक्षरों के नए समूह में कौन-सा अक्षर ठीक दो बार आएगा?

(1) A

(2) V ✔

(3) T

(4) P

Q.9 M, N, O, P, Q and R are sitting around a circular table, facing the centre. O sits second to the right of M. P sits to the immediate left of M. N sits third to the left of R. Q sits to the immediate left of N. How many persons sit between N and P when counted from the left of N?

M, N, O, P, Q और R एक गोल मेज के परित: केंद्र की ओर अभिमुख होकर बैठे हैं। O, M के दाईं ओर दूसरे स्थान पर बैठा है। P, M के ठीक बाईं ओर पड़ोस में बैठा है। N, R के बाईं ओर तीसरे स्थान पर बैठा है। Q, N के ठीक बाईं ओर पड़ोस में बैठा है। N के बाईं ओर से गिनने पर N और P के बीच कितने व्यक्ति बैठे हैं?

(1) One / एक

(2) Two / दो

(3) Four / चार ✔

(4) Three / तीन

Q.10 Seven boxes D, E, F, G, H, I and J are kept one above the other, but not necessarily in the same order. F is kept at the lowermost position. Only one box is kept between F and J. H is kept immediately above J. Only two boxes are kept between H and E. G is kept immediately above I. Which box is kept immediately above F?

सात बक्से D, E, F, G, H, I और J एक के ऊपर एक रखे गए हैं, लेकिन जरूरी नहीं कि इसी क्रम में हों। F को सबसे निचले स्थान पर रखा गया है। F और J के बीच केवल एक बक्सा रखा गया है। H को J के ठीक ऊपर रखा गया है। H और E के बीच केवल दो बक्से रखे गए हैं। G को I के ठीक ऊपर रखा गया है। F के ठीक ऊपर कौन-सा बक्सा रखा गया है?

(1) G

(2) D ✔

(3) H

(4) E

Q.11 Refer to the following letter series and answer the question that follows. Counting is to be done from left to right only.

(Left) L Q G K K R I T D U O S M P M C E W B W (Right)

How many such vowels are there in this series, each of which is immediately preceded and immediately followed by a consonant?

निम्नलिखित अक्षर शृंखला का संदर्भ लीजिए और उसके बाद दिए गए प्रश्न का उत्तर दीजिए। गिनतीकेवल बाएँ से दाएँ की जानी है।

(बाएँ) L Q G K K R I T D U O S M P M C E W B W (दाएँ)

इस शृंखला में ऐसे कितने स्वर हैं जिनमें से प्रत्येक के ठीक पहले और ठीक बाद में व्यंजन है?

(1) One / एक

(2) Four / चार

(3) Three / तीन

(4) Two / दो ✔

Q.12 In a certain code language, 'old is gold' is coded as 'ab kl st' and 'you are old' is coded as 'mn st gh'. What is the code for 'old' in the given code language? (All codes are two-letter codes.)

एक निश्चित कूट भाषा में, 'old is gold' को 'ab kl st' के रूप में और 'you are old' को 'mn st gh' के रूप में कूटबद्ध किया गया है। दी गई कूट भाषा में 'old' के लिए कूट क्या होगा? (सभी कूट दो- अक्षरों वाले कूट हैं।)

(1) st ✔

(2) mn

(3) kl

(4) gh

Q.13 Refer to the following letter series and answer the question that follows. Counting is to be done from left to right only.

(Left) V Q I G Y L Q A A O P I Q A H A E E P U C E (Right)

How many such consonants are there, each of which is immediately preceded by a vowel and also immediately followed by a vowel?

निम्नलिखित अक्षर शृंखला का संदर्भ लीजिए और दिए गए प्रश्न का उत्तर दीजिए। गिनती केवल बाएँसे दाएँ की जानी चाहिए।

(बाएँ) V Q I G Y L Q A A O P I Q A H A E E P U C E (दाएँ)

ऐसे कितने व्यंजन हैं जिनमें से प्रत्येक के ठीक पहले एक स्वर है और ठीक बाद में भी एक स्वर है?

(1) 4

(2) 5 ✔

(3) 6

(4) 7

Q.14 Refer to the following series and answer the question that follows.

(Left) D F F I U L C T A S E Y Q U E S T I O N M A D E W I T H R E C A A (Right)

If all the consonants are removed from the series, which letter will be third from the right?

निम्नलिखित शृंखला का संदर्भ लीजिए और दिए गए प्रश्न का उत्तर दीजिए।

(बाएं) D F F I U L C T A S E Y Q U E S T I O N M A D E W I T H R E C A A (दाएं)

यदि शृंखला से सभी व्यंजनों को हटा दिया जाए, तो दाएं से तीसरा अक्षर कौन-सा होगा?

(1) E ✔

(2) A

(3) O

(4) U

Q.15 D, E, F, G, H, I and J each have an exam on a different day of the same week, starting from Monday and ending on Sunday. F has the exam on Thursday. Only one person has the exam between E and D. G has the exam immediately after H but immediately before E. J has the exam on the day immediately before I. On which day does D have the exam?

D, E, F, G, H, I और J में से प्रत्येक की परीक्षा सोमवार से शुरू होकर रविवार को समाप्त होने वाले एक ही सप्ताह के अलग-अलग दिन है। F की परीक्षा गुरुवार को है। E और D के बीच केवल एक ही व्यक्ति की परीक्षा है। G की परीक्षा H के ठीक बाद लेकिन E से ठीक पहले है। J की परीक्षा I से ठीक पहले वाले दिन है। D की परीक्षा किस दिन है?

(1) Monday / सोमवार

(2) Friday / शुक्रवार ✔

(3) Wednesday / बुधवार

(4) Tuesday / मंगलवार

Q.16 A is the father of B. B is the sister of C. C is married to D. How is A related to D?

A, B का पिता है। B, C की बहन है। C का विवाह D से हुआ है। A का D से क्या संबंध है?

(1) Mother / माता

(2) Brother / भाई

(3) Son / पुत्र

(4) Father-in-law / ससुर ✔

Q.17 Refer to the following series and answer the question that follows.

(Left) H G F B V C M N U A H G F F D F D F F H G F I O U A E H G F H (Right)

If all the consonants are removed from the series, which letter will be third from the left?

निम्नलिखित शृंखला का संदर्भ लीजिए और दिए गए प्रश्न का उत्तर दीजिए।

(बाएं) H G F B V C M N U A H G F F D F D F F H G F I O U A E H G F H (दाएं)

यदि शृंखला से सभी व्यंजनों को हटा दिया जाएं, तो बाएं से तीसरा अक्षर कौन-सा होगा?

(1) A

(2) U

(3) O

(4) I ✔

Q.18 Eight people, Anmol, Babli, Chinki, Devesh, Ekam, Fatima, Garv and Hema, are sitting in a row facing north. Ekam sits second to the left of Hema and Ekam sits third to the right of Anmol. Garv sits to the immediate right of Hema and Garv sits at one of the ends of the row. Babli sits to the immediate right of Devesh. Chinki does not sit at any of the ends of the row. Who sits at the left end of the row?

आठ लोग, अनमोल, बबली, चिंकी, देवेश, एकम, फातिमा, गर्व और हेमा - उत्तर की ओर अभिमुख होकर एक पंक्ति में बैठे हैं। एकम, हेमा के बाएं दूसरे स्थान पर बैठा है और एकम, अनमोल के दाएं तीसरे स्थान पर बैठा है। गर्व, हेमा के दाएं ठीक पड़ोस में बैठा है और गर्व, पंक्ति के किसी एक छोर पर बैठा है। बबली, देवेश के दाएं ठीक पड़ोस में बैठी है। चिंकी, पंक्ति के किसी भी छोर पर नहीं बैठी है। पंक्ति के बाएं छोर पर कौन बैठा है?

(1) Chinki / चिंकी

(2) Anmol / अनमोल

(3) Fatima / फातिमा ✔

(4) Hema / हेमा

Q.19 Seven persons F, G, H, Q, R, S and T are sitting in a straight row facing north. T sits to the immediate left of H. Only two persons sit to the left of G. Only three persons sit between G and Q. Only one person sits between Q and F. S is not an immediate neighbour of Q. How many persons sit to the right of R?

सात व्यक्ति F, G, H, Q, R, S और T उत्तर की ओर अभिमुख होकर एक सीधी पंक्ति में बैठे हैं। T, H के बाईं ओर ठीक पड़ोस में बैठा है। G के बाईं ओर केवल दो व्यक्ति बैठे हैं। G और Q के बीच केवल तीन व्यक्ति बैठे हैं। Q और F के बीच केवल एक व्यक्ति बैठा है। S, Q का निकटतम पड़ोसी नहीं है। R के दाईं ओर कितने व्यक्ति बैठे हैं?

(1) Three / तीन

(2) Two / दो

(3) Four / चार

(4) One / एक ✔

Q.20 Seven people, Akhil, Bablu, Chetan, Deepak, Ekta, Falak and Geetika, are sitting in a row facing north. Geetika sits second to the right of Falak and Falak sits at one of the ends of the row. Chetan sits to the immediate left of Deepak. Ekta is an immediate neighbour of Chetan and sits third to the right of Akhil. How many people sit between Deepak and Ekta?

सात लोग, अखिल, बबलू, चेतन, दीपक, एकता, फलक और गीतिका - उत्तर की ओर अभिमुख होकर एक पंक्ति में बैठे हैं। गीतिका, फलक के दाएं दूसरे स्थान पर बैठी है तथा फलक पंक्ति के किसी एक छोर पर बैठी है। चेतन, दीपक के बाएं ठीक पड़ोस में बैठा है। एकता, चेतन की निकटतम पड़ोसी है तथा अखिल के दाएं तीसरे स्थान पर बैठी है। दीपक और एकता के बीच कितने लोग बैठे हैं?

(1) Three / तीन

(2) None / एक भी नहीं

(3) One / एक ✔

(4) Two / दो

Q.21 Select the set in which the numbers are related in the same way as are the numbers of the following sets.

(Note: Operations should be performed on the whole numbers, without breaking down the numbers into their constituent digits. E.g. 13 - Operations on 13 such as adding/subtracting/multiplying etc. to 13 can be performed. Breaking down 13 into 1 and 3 and then performing mathematical operations on 1 and 3 is not allowed.)

(11, 120, 195)

(18, 323, 398)

उस समुच्चय का चयन कीजिए जिसमें संख्याएं उसी प्रकार संबंधित हैं जिस प्रकार निम्नलिखित समुच्चयों की संख्याएं संबंधित हैं।

(नोट: गणितीय संक्रियाएं, संख्याओं को उनके घटक अंकों में तोड़े बिना, पूर्ण संख्याओं पर की जानी चाहिए। उदाहरण के लिए 13 को लीजिए - 13 पर गणितीय संक्रियाएं जैसे कि 13 को जोड़ना/घटाना/ गुणा करना, आदि किया जा सकता है। 13 को 1 और 3 में तोड़ना और फिर 1 और 3 पर गणितीय संक्रियाएं करने की अनुमति नहीं है।)

(11, 120, 195)

(18, 323, 398)

(1) (10, 100, 195)

(2) (13, 158, 230)

(3) (14, 195, 270) ✔

(4) (16, 245, 330)

Q.22 Each digit of the number 26578413 is arranged in ascending order from left to right. Which of the following will be the fourth digit from the left in the new number thus formed?

संख्या 26578413 के प्रत्येक अंक को बाएं से दाएं आरोही क्रम में व्यवस्थित किया जाता है। इस प्रकार बनी नई संख्या में बाएं से चौथा अंक निम्नलिखित में से कौन-सा होगा?

(1) 6

(2) 5

(3) 4 ✔

(4) 3

Q.23 Following a certain logic, 6 is related to 26. Following the same logic, 9 is related to 38. Following the same logic, to which of the following options is 13 related?
(Note: Operations should be performed on the whole numbers, without breaking down the numbers into their constituent digits. E.g. 13 - Operations on 13 such as adding/subtracting/multiplying etc. to 13 can be performed. Breaking down 13 into 1 and 3 and then performing mathematical operations on 1 and 3 is not allowed.)

एक निश्चित तर्क का अनुसरण करते हुए, 6 का संबंध 26 से है। समान तर्क का अनुसरण करते हुए, 9 का संबंध 38 से है। उसी तर्क का अनुसरण करने पर, 13 का संबंध निम्नलिखित में से किस विकल्प से है?
(नोट: गणितीय संक्रियाएं, संख्याओं को उनके घटक अंकों में तोड़े बिना, पूर्ण संख्याओं पर की जानी चाहिए। उदाहरण के लिए 13 को लीजिए - 13 पर गणितीय संक्रियाएं जैसे कि 13 को जोड़ना/घटाना/ गुणा करना, आदि किया जा सकता है। 13 को 1 और 3 में तोड़ना और फिर 1 और 3 पर गणितीय संक्रियाएं करने की अनुमति नहीं है।)

(1) 51
(2) 47
(3) 60
(4) 54 ✔

Q.24 Two sets of numbers are given below. In each set of numbers, a certain mathematical operation on the first number results in the second number. Similarly, a certain mathematical operation on the second number results in the third number and so on. Which of the given options follows the same set of operations as in the given sets?
(NOTE: Operations should be performed on the whole numbers, without breaking down the numbers into their constituent digits. E.g. if 37 is followed by 10, the operation cannot be 3+7, because breaking down a two-digit number into its constituent digits is not allowed)
40 - 20 - 60 - 80 ; 2 - 1 - 3 - 4

नीचे संख्याओं के दो समुच्चय दिए गए हैं। संख्याओं के प्रत्येक समुच्चय में, पहली संख्या पर एक निश्चित गणितीय संक्रिया के परिणामस्वरूप दूसरी संख्या प्राप्त होती है। इसी प्रकार, दूसरी संख्या पर एक निश्चित गणितीय संक्रिया के परिणामस्वरूप तीसरी संख्या प्राप्त होती है और यह क्रम इसी प्रकार आगे भी जारी रहता है। दिए गए विकल्पों में से कौन-सा विकल्प प्रश्न के समुच्चयों में अपनाई गई संक्रियाओं के समान समुच्चय का अनुसरण करता है?
(नोट - दो/तीन अंकीय संख्याओं को गणितीय संक्रिया के लिए अलग-अलग अंकों में तोड़ने की अनुमति नहीं है, जैसे कि, यदि 37 के बाद 10 है, तो संक्रिया 3+7 नहीं हो सकती है क्योंकि दो अंकीय संख्या को अलग-अलग अंकों में नहीं तोड़ा जा सकता है)
40 - 20 - 60 - 80 ; 2 - 1 - 3 - 4

(1) 4 - 1 - 5 - 10
(2) 20 - 5 - 25 - 50
(3) 5 - 3 - 8 - 13
(4) 14 - 7 - 21 - 28 ✔

Q.25 Three of the following four letter-clusters are alike in a certain way based on the English alphabetical order and thus form a group. Which letter-cluster does NOT belong to that group?
(Note: The odd one out is not based on the number of consonants/vowels or their position in the letter-cluster.)

अंग्रेजी वर्णमाला क्रम के आधार पर, निम्नलिखित चार अक्षर-समूहों में से तीन एक निश्चित तरीके से समान हैं और इस प्रकार वे एक ग्रुप बनाते हैं। कौन-सा अक्षर-समूह, उस ग्रुप से संबंधित नहीं है?
(नोट: असंगत अक्षर-समूह, उसमें व्यंजनों/स्वरों की संख्या या स्थिति पर आधारित नहीं है।)

(1) EGI
(2) DFH
(3) ACE
(4) IKL ✔

Q.26 XMEQ is related to ZOGS in a certain way based on the English alphabetical order. In the same way, LANX is related to NCPZ. Following the same logic, to which of the following options is TJCK related?

अंग्रेजी वर्णमाला क्रम के आधार पर, एक निश्चित तरीके से XMEQ का संबंध ZOGS से है। इसीप्रकार, LANX का संबंध NCPZ से है। समान तर्क का अनुसरण करने पर, TJCK का संबंध निम्नलिखित में से किस विकल्प से है?

(1) WKEN

(2) VLEM ✔

(3) WMDN

(4) UMFO

Q.27 Following a certain logic, 12 is related to 3. Following the same logic, 39 is related to 6. Following the same logic, to which of the following options is 52 related?

(Note: Operations should be performed on the whole numbers, without breaking down the numbers into their constituent digits. E.g. 13 - Operations on 13 such as adding/subtracting/multiplying etc. to 13 can be performed. Breaking down 13 into 1 and 3 and then performing mathematical operations on 1 and 3 is not allowed.)

एक निश्चित तर्क का अनुसरण करते हुए, 12 का संबंध 3 से है। समान तर्क का अनुसरण करते हुए, 39 का संबंध 6 से है। उसी तर्क का अनुसरण करने पर, 52 का संबंध निम्नलिखित में से किस विकल्प से है?

(नोट: गणितीय संक्रियाएं, संख्याओं को उनके घटक अंकों में तोड़े बिना, पूर्ण संख्याओं पर की जानी चाहिए। उदाहरण के लिए 13 को लीजिए - 13 पर गणितीय संक्रियाएं जैसे कि 13 को जोड़ना/घटाना/ गुणा करना, आदि किया जा सकता है। 13 को 1 और 3 में तोड़ना और फिर 1 और 3 पर गणितीय संक्रियाएं करने की अनुमति नहीं है।)

(1) 4

(2) 13

(3) 15

(4) 7 ✔

Quick Sarkari

Q.28 If a water body is placed along X-Y, as shown in the figure, which of the following options will be the water image of the given figure?

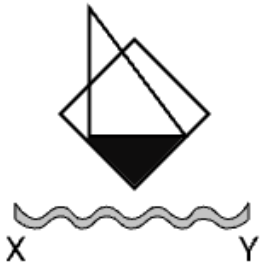

यदि जल स्रोत को X-Y के अनुदिश रखा जाए, जैसा कि चित्र में दिखाया गया है, तो निम्नलिखित में से कौन-सा विकल्प दिए गए चित्र का जल प्रतिबिंब होगा?

(1) 

(2) 

(3) 

(4)  ✔

Q.29 Select the triad that follows the same pattern as that followed by the two triads given below. Both the triads follow the same pattern.

DF - IK - NP PR - UW - ZB

नीचे दिए गए दो त्रिकों के समान पैटर्न का अनुसरण करने वाले त्रिक का चयन कीजिए। दोनों त्रिकसमान पैटर्न का अनुसरण करते हैं।

DF - IK - NP PR - UW - ZB

(1) IK - OP - TU

(2) HI - LM - PQ

(3) **FH - KM - PR ✔**

(4) BC - FG - JK

QuickSarkari.com | WhatsApp Channel | Telegram: t.me/quick_sarkari

Q.30 If 'I' means '+', 'J' means '×', 'K' means '÷' and 'L' means '-', then what will come in place of the question mark '?' in the following equation?
14 J 4 L (10 K 2) J 3 = ?
यदि 'I' का अर्थ '+' है, 'J' का अर्थ '×' है, 'K' का अर्थ '÷' है और 'L' का अर्थ '-' है, तो निम्नांकित समीकरण में प्रश्न चिह्न '?' के स्थान पर क्या आएगा?
14 J 4 L (10 K 2) J 3 = ?

(1) 37
(2) **41 ✔**
(3) 59
(4) 22

Q.31 If 'A' means '÷', 'B' means '×', 'C' means '+' and 'D' means '–', then what will come in place of the question mark (?) in the following equation?
143 C 208 A 13 B 4 D 125 = ?
यदि 'A' का अर्थ '÷' है, 'B' का अर्थ '×' है, 'C' का अर्थ '+' है और 'D' का अर्थ '–' है, तो निम्नलिखित समीकरण में प्रश्न-चिह्न (?) के स्थान पर क्या आएगा?
143 C 208 A 13 B 4 D 125 = ?

(1) 84
(2) **82 ✔**
(3) 87
(4) 89

Q.32 In a certain way, NX 15 is related to OU 6. In the same way, UO 13 is related to VL 4. Following the same logic, to which of the following is ON 11 related?
एक निश्चित तरीके से, NX 15 का संबंध OU 6 से है। उसी प्रकार, UO 13 का संबंध VL 4 से है। समान तर्क का अनुसरण करते हुए, ON 11 का संबंध निम्नलिखित में से किससे है?

(1) PL 4
(2) OL 4
(3) OK 2
(4) **PK 2 ✔**

Q.33 PMBV is related to TQFZ in a certain way based on the English alphabetical order. In the same way, LAWS is related to PEAW. Following the same logic, to which of the following is TQEY related?
अंग्रेजी वर्णमाला क्रम के आधार पर एक निश्चित तरीके से PMBV का संबंध TQFZ से है। उसीप्रकार, LAWS का संबंध PEAW से है। समान तर्क का अनुसरण करते हुए, TQEY का संबंध निम्नलिखित में से किससे है?

(1) YWKD
(2) ZUID
(3) ZVJE
(4) **XUIC ✔**

Q.34 Three of the following four letter-cluster pairs are alike in a certain way based on the English alphabetical order and thus form a group. Which letter-cluster pair does NOT belong to that group?
(Note: The odd one out is not based on the number of consonants/vowels or their position in the letter-cluster pair.)

अंग्रेजी वर्णमाला क्रम के आधार पर, निम्नलिखित चार अक्षर-समूह युग्मों में से तीन एक निश्चित तरीके से एकसमान हैं और इस प्रकार वे एक ग्रुप बनाते हैं। कौन-सा अक्षर-समूह युग्म उस ग्रुप से संबंधित नहीं है?
(नोट: असंगत अक्षर-समूह युग्म, व्यंजनों/स्वरों की संख्या या उनकी स्थिति पर आधारित नहीं है।)

(1) LP - IN
(2) TF - QD
(3) YG - VE
(4) VC - SZ ✔

Q.35 Two sets of numbers are given below. In each set of numbers, a certain mathematical operation on the first number results in the second number. Similarly, a certain mathematical operation on the second number results in the third number and so on. Which of the given options follows the same set of operations as in the given sets?
(NOTE: Operations should be performed on the whole numbers, without breaking down the numbers into their constituent digits. E.g. if 37 is followed by 10, the operation cannot be 3+7, because breaking down a two-digit number into its constituent digits is not allowed)
10 – 20 – 40 – 80; 15 – 30 – 60 – 120

नीचे संख्याओं के दो समुच्चय दिए गए हैं। संख्याओं के प्रत्येक समुच्चय में, पहली संख्या पर एक निश्चित गणितीय संक्रिया के परिणामस्वरूप दूसरी संख्या प्राप्त होती है। इसी प्रकार, दूसरी संख्या पर एक निश्चित गणितीय संक्रिया के परिणामस्वरूप तीसरी संख्या प्राप्त होती है और यह क्रम इसी प्रकार आगे भी जारी रहता है। दिए गए विकल्पों में से कौन-सा विकल्प प्रश्न के समुच्चयों में अपनाई गई संक्रियाओं के समान समुच्चय का अनुसरण करता है?
(नोट - दो/तीन अंकीय संख्याओं को गणितीय संक्रिया के लिए अलग-अलग अंकों में तोड़ने की अनुमति नहीं है, जैसे कि, यदि 37 के बाद 10 है, तो संक्रिया 3+7 नहीं हो सकती है क्योंकि दो अंकीय संख्या को अलग-अलग अंकों में नहीं तोड़ा जा सकता है)
10 – 20 – 40 – 80; 15 – 30 – 60 – 120

(1) 18 – 36 – 72 – 144 ✔
(2) 20 – 30 – 80 – 160
(3) 25 – 50 – 100 – 150
(4) 16 – 32 – 48 – 96

Q.36 Which letter-cluster will replace ? in the given series based on the English alphabetical order?
GJM PSV YBE HKN ?

अंग्रेजी वर्णमाला क्रम के आधार पर दी गई श्रृंखला में ? के स्थान पर क्या आना चाहिए?
GJM PSV YBE HKN ?

(1) RTW
(2) QRS
(3) QTW ✔
(4) RST

Q.37 Which letter-cluster will replace the question mark (?) in the given series based on the English alphabetical order?
WXY ZAB CDE FGH ?

अंग्रेजी वर्णमाला क्रम के आधार पर दी गई श्रृंखला में प्रश्न-चिह्न (?) के स्थान पर क्या आना चाहिए?
WXY ZAB CDE FGH ?

(1) IJL
(2) JKL
(3) IJK ✔
(4) KLM

Q.38 Three of the following four letter-clusters are alike in a certain way based on the English alphabetical order and thus form a group. Which letter-cluster does NOT belong to that group?
(Note: The odd one out is not based on the number of consonants/vowels or their position in the letter-cluster.)

अंग्रेजी वर्णमाला क्रम के आधार पर, निम्नलिखित चार अक्षर-समूहों में से तीन एक निश्चित तरीके से एकसमान हैं और इस प्रकार वे एक ग्रुप बनाते हैं। कौन-सा अक्षर-समूह उस ग्रुप से संबंधित नहीं है?
(नोट: असंगत अक्षर-समूह, उसमें व्यंजनों/स्वरों की संख्या या उनकी स्थिति पर आधारित नहीं है।)

(1) NMP ✔
(2) LJG
(3) JHE
(4) PNK

Q.39 If '+' and '–' are interchanged and '×' and '÷' are interchanged, then what will come in place of '?' in the equation given below?
72 + 25 × 5 - 13 ÷ 2 = ?

यदि '+' और '–' को परस्पर बदल दिया जाए तथा '×' और '÷' को परस्पर बदल दिया जाए, तो नीचे दिए गए समीकरण में '?' के स्थान पर क्या आएगा?
72 + 25 × 5 - 13 ÷ 2 = ?

(1) 76
(2) 81
(3) 63
(4) 93 ✔

Q.40 Select the correct mirror image of the given combination when the mirror is placed at 'PQ' as shown below.



नीचे दिखाए गए चित्र के अनुसार, जब दर्पण को 'PQ' पर रखा जाता है, तो दिए गए संयोजन के सही दर्पण प्रतिबिंब का चयन कीजिए।

(1) Ɛ Ɔ B U Я Ⅎ ✔
(2) Ɛ Ɔ U B Я Ⅎ
(3) Ɛ Ɔ B ∩ Я Ⅎ
(4) Ⅎ Я ∩ B C 3

General Awareness

Q.41 What is the effect of a decrease in consumer income on market equilibrium?
उपभोक्ता आय में कमी का बाजार संतुलन पर क्या प्रभाव पड़ता है?

(1) Increase in equilibrium price and decrease in equilibrium quantity / साम्य कीमत में वृद्धि और साम्य मात्रा में कमी
(2) Increase in both equilibrium price and quantity / साम्य कीमत और मात्रा दोनों में वृद्धि
(3) Decrease in equilibrium price and increase in equilibrium quantity / साम्य कीमत में कमी और साम्य मात्रा में वृद्धि
(4) **Decrease in both equilibrium price and quantity / साम्य कीमत और मात्रा दोनों में कमी ✓**

Q.42 Who was the prominent leader associated with the Aligarh Movement in nineteenth-century India?
उन्नीसवीं सदी के भारत में अलीगढ़ आंदोलन से संबंधित प्रमुख लीडर कौन थे?

(1) Zakir Naik / ज़ाकिर नाइक
(2) Mohammad Ali Jinnah / मोहम्मद अली जिन्ना
(3) Maulana Abul Kalam Azad / मौलाना अबुल कलाम आजाद
(4) **Sir Syed Ahmad Khan / सर सैयद अहमद खान ✓**

Q.43 In atmospheric circulation, in which direction do winds generally blow due to pressure difference?
वायुमंडलीय परिसंचरण में, दाबांतर के कारण पवन सामान्यतः किस दिशा में चलती हैं?

(1) From oceanic regions only towards adjacent land / समुद्री क्षेत्रों से केवल निकटवर्ती भूमि की ओर
(2) From low pressure areas towards high pressure areas / निम्न दाब वाले क्षेत्रों से उच्च दाब वाले क्षेत्रों की ओर
(3) From land areas only towards the adjacent sea / भूमि क्षेत्रों से केवल निकटवर्ती समुद्र की ओर
(4) **From high pressure areas towards low pressure areas / उच्च दाब वाले क्षेत्रों से निम्न दाब वाले क्षेत्रों की ओर ✓**

Q.44 Which of the following is a primary instrument of monetary policy used by the Reserve Bank of India to control money supply?
निम्नलिखित में से कौन-सा मौद्रिक नीति का प्राथमिक साधन है जिसका उपयोग भारतीय रिजर्व बैंक द्वारा मुद्रा आपूर्ति को नियंत्रित करने के लिए किया जाता है?

(1) Foreign Direct Investment / प्रत्यक्ष विदेशी निवेश
(2) **Bank Rate / बैंक दर ✓**
(3) Fiscal Deficit / राजकोषीय घाटा
(4) Public Debt / सार्वजनिक ऋण

Q.45 Cardinal utility analysis is based on which fundamental postulate regarding the measurement of utility?
गणनात्मक उपयोगिता विश्लेषण, उपयोगिता के मापन के संबंध में, किस मूलभूत अभिधारणा पर आधारित है?

(1) Utility can only be ranked on the basis of preference / उपयोगिता को केवल वरीयता के आधार पर ही श्रेणीबद्ध किया जा सकता है
(2) Utility remains constant for all individuals / उपयोगिता सभी व्यक्तियों के लिए स्थिर रहती है
(3) Utility is independent of income and prices / उपयोगिता आय और कीमतों से स्वतंत्र होती है
(4) **Utility can be measured in numerical units / उपयोगिता को संख्यात्मक इकाइयों में मापा जा सकता है ✓**

Q.46 How does a decrease in both demand and supply affect market equilibrium?
मांग और आपूर्ति दोनों में कमी बाजार संतुलन को किस प्रकार प्रभावित करती है?

(1) Price decreases, quantity remains unchanged / कीमत में कमी होती है, मात्रा अपरिवर्तित रहती है
(2) **Price remains unchanged, quantity decreases / कीमत अपरिवर्तित रहती है, मात्रा में कमी होती है ✓**
(3) Price increases, quantity remains unchanged / कीमत में वृद्धि होती है, मात्रा अपरिवर्तित रहती है
(4) Price decreases, quantity increases / कीमत में कमी होती है, मात्रा में वृद्धि होती है

Q.47 Who emerged as the prominent figure of the Revolt of 1857 in Lucknow?

लखनऊ में 1857 के विद्रोह के प्रमुख व्यक्ति के रूप में कौन उभरा?

(1) Rani Lakshmibai / रानी लक्ष्मीबाई

(2) **Begum Hazrat Mahal / बेगम हजरत महल ✔**

(3) Tantia Tope / तांत्या टोपे

(4) Kunwar Singh / कुंवर सिंह

Q.48 According to Article 53(2) of the Indian Constitution, the supreme command of the Defence Forces of the Union is vested in whom?

भारतीय संविधान के अनुच्छेद 53(2) के अनुसार, संघ के रक्षा बलों की सर्वोच्च कमान किसके पासनिहित है?

(1) Chief of Defence Staff / चीफ ऑफ डिफेंस स्टाफ

(2) Council of Ministers / मंत्रिपरिषद

(3) **President of India / भारत के राष्ट्रपति ✔**

(4) Prime Minister of India / भारत के प्रधानमंत्री

Q.49 Which Article of the Indian Constitution deals with the authentication of orders and instruments issued in the name of the State Government?

भारतीय संविधान का कौन-सा अनुच्छेद, राज्य सरकार के नाम पर जारी किए गए आदेशों औरलिखतों के प्रमाणीकरण से संबंधित है?

(1) Article 163 / अनुच्छेद 163

(2) **Article 166 / अनुच्छेद 166 ✔**

(3) Article 168 / अनुच्छेद 168

(4) Article 154 / अनुच्छेद 154

Q.50 Who among the following is known as the “Grand Old Man of India”?

निम्नलिखित में से किसे “ग्रैंड ओल्ड मैन ऑफ इंडिया” के नाम से जाना जाता है?

(1) Gopal Krishna Gokhale / गोपाल कृष्ण गोखले

(2) Bal Gangadhar Tilak / बाल गंगाधर तिलक

(3) Lala Lajpat Rai / लाला लाजपत राय

(4) **Dadabhai Naoroji / दादाभाई नौरोजी ✔**

Q.51 What was the primary objective of the Wahabi Movement in nineteenth-century India?

उन्नीसवीं शताब्दी के भारत में वहाबी आंदोलन (Wahabi Movement) का प्राथमिक उद्देश्य क्या था?

(1) To promote Western education among Indian Muslims through modern institutions / आधुनिक संस्थानों के माध्यम से भारतीय मुसलमानों के बीच पश्चिमी शिक्षा को बढ़ावा देना

(2) To negotiate administrative concessions from the British through peaceful petitions / शांतिपूर्ण याचिकाओं के माध्यम से अंग्रेजों से प्रशासनिक रियायतों पर बातचीत करना

(3) **To revive puritanical Islam and resist British rule through religio-political mobilisation / शुद्धिवादी इस्लाम को पुनर्जीवित करना तथा धार्मिक-राजनीतिक लामबंदी के माध्यम से ब्रिटिश सत्ता का प्रतिरोध करना ✔**

(4) To reform social customs in Muslim society and campaign against caste discrimination / मुस्लिम समाज में सामाजिक रीति-रिवाजों में सुधार करना और जातिगत भेदभाव के विरुद्ध अभियान चलाना

QuickSarkari.com | WhatsApp Channel | Telegram: t.me/quick_sarkari

Q.52 Which tree species is predominantly found in the mangrove ecosystems of India?
भारत के मैंग्रोव पारिस्थितिकी तंत्र में कौन-सी वृक्ष प्रजाति, प्रमुखता से पाई जाती है?

(1) Pine / चीड़ (Pine)
(2) Sundari / सुंदरी (Sundari) ✔
(3) Teak / सागौन (Teak)
(4) Oak / ओक (Oak)

Q.53 During the Extremist phase (1905) of the Indian National Movement, which movement gained wide popularity as a form of nationalist resistance?
भारतीय राष्ट्रीय आंदोलन के उग्रवादी चरण (1905) के दौरान, राष्ट्रवादी प्रतिरोध के रूप में किसआंदोलन ने व्यापक लोकप्रियता प्राप्त की?

(1) Civil Disobedience Movement / सविनय अवज्ञा आंदोलन
(2) Swadeshi and Boycott Movement / स्वदेशी और बहिष्कार आंदोलन ✔
(3) Khilafat and Hijrat Movement / खिलाफत और हिजरत आंदोलन
(4) Champaran Movement / चंपारण आंदोलन

Q.54 According to Article 53(1) of the Constitution of India, the executive power of the Union is vested in whom?
भारत के संविधान के अनुच्छेद 53(1) के अनुसार, संघ की कार्यकारी शक्ति किसमें निहित होती है?

(1) Council of Ministers / मंत्रिपरिषद
(2) Parliament of India / भारत की संसद
(3) Prime Minister of India / भारत के प्रधानमंत्री
(4) President of India / भारत के राष्ट्रपति ✔

Q.55 What is the primary objective of the Sampoorna Grameen Rozgar Yojana (SGRY)?
संपूर्ण ग्रामीण रोजगार योजना (SGRY) का प्राथमिक उद्देश्य क्या है?

(1) To provide permanent salaried employment in rural areas / ग्रामीण क्षेत्रों में स्थायी वैतनिक रोजगार प्रदान करना
(2) To generate additional wage employment in rural areas / ग्रामीण क्षेत्रों में अतिरिक्त मजदूरी रोजगार सृजन करना ✔
(3) To encourage rural entrepreneurship and self-employment / ग्रामीण उद्यमिता और स्व-रोजगार को प्रोत्साहित करना
(4) To expand employment opportunities in urban areas / शहरी क्षेत्रों में रोजगार के अवसरों का विस्तार करना

Q.56 In demographic and public health statistics, which indicator specifically measures the number of infants who die before reaching one year of age per 1,000 live births in a given year?
जनसांख्यिकीय और सार्वजनिक स्वास्थ्य आंकड़ों में, कौन-सा सूचक विशेष रूप से किसी दिए गएवर्ष में प्रति 1,000 जीवित जन्मों पर एक वर्ष की आयु तक पहुंचने से पहले मरने वाले शिशुओं की संख्या को मापता है?

(1) Neonatal Mortality Rate / नवजात मृत्यु दर
(2) Infant Mortality Rate / शिशु मृत्यु दर ✔
(3) Crude Death Rate / अशोधित मृत्यु दर
(4) Under-five Mortality Rate / पाँच वर्ष से कम आयु की मृत्यु दर

Q.57 What is the primary mechanism responsible for orographic rainfall in high-altitude regions?
अधिक ऊँचाई वाले क्षेत्रों में पर्वतीय वर्षा (orographic rainfall) के लिए उत्तरदायी प्राथमिक तंत्रक्या है?

(1) Low-pressure systems draw in moist air, causing widespread precipitation. / निम्न दाब वाली प्रणालियाँ आर्द्र वायु में आकर्षित होती हैं, जिससे व्यापक वर्षण होता है।

(2) Convergence of contrasting air masses along a front, causing air to rise and rainfall to occur. / एक वाताग्र के सहारे विपरीत वायु द्रव्यमानों का अभिसरण, जिससे वायु ऊपर उठती है और वर्षा होती है।

(3) Forced ascent of moist air over mountains, cooling and condensing to produce rainfall. / पर्वतों के ऊपर आर्द्र वायु का बलपूर्वक ऊपर उठना, ठंडा होना और संघनित होकर वर्षा करना। ✔

(4) Vertical rise of warm air due to intense surface heating in lowland areas. / निम्न भूमि क्षेत्रों में तीव्र सतह तापन के कारण उष्ण वायु का ऊर्ध्वाधर रूप से ऊपर उठना।

Q.58 Through which Constitutional Amendment Act were the Fundamental Duties incorporated in the Indian Constitution?
भारतीय संविधान में मौलिक कर्तव्यों को किस सांविधानिक संशोधन अधिनियम के माध्यम से सम्मिलित किया गया था?

(1) 44th Amendment / 44वें संशोधन

(2) 61st Amendment / 61वें संशोधन

(3) 42nd Amendment / 42वें संशोधन ✔

(4) 52nd Amendment / 52वें संशोधन

Q.59 Which of the following climatic factors mainly causes the onset of the summer season in India?
निम्नलिखित में से कौन-सा जलवायु कारक, मुख्य रूप से भारत में ग्रीष्म ऋतु के विकास का कारणबनता है?

(1) Arrival of Western Disturbances / पश्चिमी विक्षोभ का आगमन

(2) Rapid heating of the land surface / भूमि के पृष्ठ का तीव्र तापन ✔

(3) Onset of the south-west monsoon winds / दक्षिण-पश्चिम मानसूनी पवनों की शुरुआत

(4) Retreat of the north-east monsoon winds / उत्तर-पूर्व मानसूनी पवनों का निवर्तन

Q.60 Under which Article of the Constitution has the Election Commission of India been established?
भारत के निर्वाचन आयोग की स्थापना संविधान के किस अनुच्छेद के अधीन की गई है?

(1) Article 324 / अनुच्छेद 324 ✔

(2) Article 148 / अनुच्छेद 148

(3) Article 315 / अनुच्छेद 315

(4) Article 280 / अनुच्छेद 280

Q.61 In which state of India is the Ganga Sagar Mela celebrated?
भारत के किस राज्य में गंगा सागर मेला मनाया जाता है?

(1) Uttar Pradesh / उत्तर प्रदेश

(2) West Bengal / पश्चिम बंगाल ✔

(3) Bihar / बिहार

(4) Odisha / ओडिशा

Q.62 Which of the following defence exercises was held in Jodhpur in July 2025?
निम्नलिखित में से कौन-सा रक्षा अभ्यास जुलाई 2025 में जोधपुर में आयोजित किया गया था?

(1) Malabar / मालाबार

(2) Bold Kurukshetra / बोल्ड कुरुक्षेत्र ✔

(3) Yudh Abhyas / युद्ध अभ्यास

(4) INDRA / इंद्र

Q.63 Which sports policy was approved by the Union Cabinet in July 2025 to revitalise India's sports ecosystem and encourage citizen participation?

भारत के खेल पारिस्थितिकी तंत्र का पुनरुद्धार करने और नागरिक भागीदारी को प्रोत्साहित करने के लिए केंद्रीय मंत्रिमंडल ने जुलाई 2025 में किस खेल नीति को मंजूरी दी थी?

(1) National Sports Development Policy 2025 / राष्ट्रीय खेल विकास नीति 2025

(2) National Olympic Preparation Policy 2025 / राष्ट्रीय ओलंपिक तैयारी नीति 2025

(3) National Sports Good Governance Framework 2025 / राष्ट्रीय खेल सुशासन ढांचा 2025

(4) National Sports Policy 2025 / राष्ट्रीय खेल नीति 2025 ✔

Q.64 In November 2025, which actor was honoured at IFFI (International Film Festival of India) for completing 50 years in Indian cinema?

नवंबर 2025 में, भारतीय सिनेमा में 50 वर्ष पूरे करने के लिए IFFI (इंटरनेशनल फिल्म फेस्टिवलऑफ इंडिया) में किस अभिनेता को सम्मानित किया गया था?

(1) Dharmendra / धर्मेंद्र

(2) Amitabh Bachchan / अमिताभ बच्चन

(3) Rajinikanth / रजनीकांत ✔

(4) Jeetendra / जितेंद्र

Q.65 Which of the following Acts is included in the amendments under the Banking Laws (Amendment) Act, 2025?

बैंकिंग कानून (संशोधन) अधिनियम, 2025 के अंतर्गत संशोधनों में निम्नलिखित में से कौन-साकौन-सा अधिनियम शामिल है?

(1) Companies Act, 2013 / कंपनी अधिनियम, 2013

(2) Negotiable Instruments Act, 1881 / परक्राम्य लिखत अधिनियम, 1881

(3) Securities Contracts (Regulation) Act, 1956 / प्रतिभूति संविदा (विनियमन) अधिनियम, 1956

(4) Banking Companies (Acquisition and Transfer of Undertakings) Act, 1970 / बैंककारी कम्पनी (उपक्रमों का अर्जन और अन्तरण) अधिनियम, 1970 ✔

Q.66 In July 2025, which trade association organised a people's summit focusing on the future of work?

जुलाई 2025 में, किस व्यापार संघ ने कार्य के भविष्य पर फोकस करके जन शिखर सम्मेलन काआयोजन किया?

(1) Federation of Indian Chambers of Commerce and Industry (FICCI) / फेडरेशन ऑफ इंडियन चैंबर्स ऑफ कॉमर्स एंड इंडस्ट्री (FICCI)

(2) National Association of Software and Service Companies (NASSCOM) / नेशनल एसोसिएशन ऑफ सॉफ्टवेयर एंड सर्विस कंपनीज (NASSCOM) ✔

(3) Confederation of Indian Industry (CII) / भारतीय उद्योग परिसंघ (CII)

(4) Indian Banks' Association (IBA) / भारतीय बैंक संघ (IBA)

Q.67 In which of the following categories was Nandkishore Kapote given the Sangeet Natak Akademi Award in 2020?

नंदकिशोर कपोटे को 2020 में संगीत नाटक अकादमी पुरस्कार निम्नलिखित में से किस श्रेणी में दियागया था?

(1) Odissi dance / ओडिसी नृत्य

(2) Kathak dance / कथक नृत्य ✔

(3) Bharatanatyam dance / भरतनाट्यम नृत्य

(4) Manipuri dance / मणिपुरी नृत्य

Q.68 In January 2026, the governments of Odisha and Meghalaya signed a Memorandum of Understanding (MoU) to strengthen which of the following areas?

जनवरी 2026 में, ओडिशा और मेघालय की सरकारों ने निम्नलिखित में से किस क्षेत्र को मजबूत करने के लिए एक समझौता ज्ञापन (MoU) पर हस्ताक्षर किए?

(1) Improving access to quality higher education for marginalised communities / हाशिए पर पड़े समुदायों के लिए गुणवत्तापूर्ण उच्च शिक्षा तक पहुंच में सुधार करना

(2) Reducing poverty and unemployment among vulnerable populations / वंचितों (vulnerable populations) में गरीबी और बेरोजगारी को कम करना

(3) Enhancing early childhood care, learning and development / प्रारंभिक बाल्यावस्था देखभाल, अधिगम और विकास को बढ़ाना ✔

(4) Promoting gender equality and safety for women and children / महिलाओं और बच्चों के लिए जेंडर समानता और सुरक्षा को बढ़ावा देना

Q.69 Naphthalene balls kept in the open gradually disappear without leaving any solid residue. Which physical process is responsible for this phenomenon?

खुले में रखी नेप्थलीन की गोलियाँ धीरे-धीरे गायब हो जाती हैं और कोई ठोस अवशेष नहीं छोड़ती हैं। इस घटना के लिए कौन-सी भौतिक प्रक्रिया उत्तरदायी है?

(1) Sublimation / ऊर्ध्वपातन ✔

(2) Evaporation / वाष्पीकरण

(3) Condensation / संघनन

(4) Melting / गलन

Q.70 According to Brand Finance's Energy 100 2025 report, which company has retained its top position as the world's most valuable oil and gas brand?

ब्रांड फाइनेंस की एनर्जी 100 2025 रिपोर्ट के अनुसार, किस कंपनी ने विश्व के सबसे मूल्यवान तेल एवं गैस ब्रांड के रूप में अपना शीर्ष स्थान बरकरार रखा है?

(1) Sinopec Group / सिनोपेक ग्रुप (Sinopec Group)

(2) Shell / शेल (Shell) ✔

(3) TotalEnergies / टोटलएनर्जीज़ (TotalEnergies)

(4) Aramco / अरामको (Aramco)

Q.71 Cooperative societies of which sector from the Malabar region of Kerala were conferred the top honour in the National Gopal Ratna Award (NGRA) 2025?

केरल के मालाबार क्षेत्र की किस क्षेत्र की सहकारी समितियों को राष्ट्रीय गोपाल रत्न पुरस्कार (NGRA) 2025 में शीर्ष सम्मान से सम्मानित किया गया था?

(1) Fisheries cooperative society / मत्स्य पालन सहकारी समिति

(2) Dairy cooperative society / डेयरी सहकारी समिति ✔

(3) Agricultural cooperative society / कृषि सहकारी समिति

(4) Credit cooperative society / ऋण सहकारी समिति

Q.72 What is the name of the reaction in which an alcohol reacts with a carboxylic acid in the presence of an acid catalyst to form a sweet-smelling compound?
उस अभिक्रिया का नाम क्या है जिसमें एक अम्ल उत्प्रेरक की उपस्थिति में एक अल्कोहल, कार्बोक्सिलिक अम्ल के साथ अभिक्रिया करके मीठी सुगंध वाला यौगिक बनाता है?

(1) Hydrogenation / हाइड्रोजनीकरण (Hydrogenation)
(2) **Esterification / एस्टरीकरण (Esterification) ✔**
(3) Oxidation / ऑक्सीकरण (Oxidation)
(4) Neutralization / उदासीनीकरण (Neutralization)

Q.73 In November 2025, which became the first state of India to implement the revised Bharat Net Scheme?
नवंबर 2025 में, संशोधित भारत नेट योजना (Bharat Net Scheme) को लागू करने वाला भारत कापहला राज्य कौन बना?

(1) Gujarat / गुजरात
(2) Odisha / ओडिशा
(3) **Punjab / पंजाब ✔**
(4) Kerala / केरल

Q.74 Which eminent BBC correspondent, known as the 'voice of India', passed away in January 2026?
BBC के किस प्रतिष्ठित संवाददाता, जिन्हें 'वॉयस ऑफ इंडिया (voice of India)' के रूप में जानाजाता है, का जनवरी 2026 में निधन हो गया?

(1) Christiane Amanpour / क्रिस्टियान अमनपोर (Christiane Amanpour)
(2) Jon Snow / जॉन स्नो (Jon Snow)
(3) Andrew Neil / एंड्रयू नील (Andrew Neil)
(4) **Mark Tully / मार्क टली (Mark Tully) ✔**

Q.75 In the Nyaya system of Indian philosophy, what is meant by Prama (valid knowledge)?
भारतीय दर्शन की न्याय प्रणाली में, प्रमा (वैध ज्ञान) से क्या तात्पर्य है?

(1) Symbolic or linguistic understanding of an object / किसी वस्तु की प्रतीकात्मक या भाषाई समझ
(2) Immediate intuitive realisation of the Ultimate Reality / परमतत्त्व की तत्काल सहज अनुभूति
(3) Knowledge obtained only through sense perception / केवल इंद्रिय बोध के माध्यम से प्राप्त ज्ञान
(4) **Complete knowledge of an object in conformity with reality / सत् के अनुरूप किसी वस्तु का पूर्ण ज्ञान ✔**

Q.76 Fatima Bosch, who was crowned Miss Universe 2025, represents which country?
फातिमा बॉश, जिन्हें मिस यूनिवर्स 2025 का ताज पहनाया गया, किस देश का प्रतिनिधित्व करती हैं?

(1) **Mexico / मेक्सिको ✔**
(2) Spain / स्पेन
(3) Sweden / स्वीडन
(4) Norway / नॉर्वे

Q.77 In November 2025, which of the following Indian sporting achievements was widely recognised as a historic first for the country?
नवंबर 2025 में, निम्नलिखित में से किस भारतीय खेल उपलब्धिको व्यापक रूप से देश के लिएपहली ऐतिहासिक उपलब्धिके रूप में मान्यता दी गई?

(1) Men's Asia Cup T20 victory / पुरुषों का एशिया कप T20 जीत (Men's Asia Cup T20 victory)
(2) Hockey Asia Cup defence / हॉकी एशिया कप डिफेन्स (Hockey Asia Cup defence)
(3) Para Athletes World Games medals / पैरा एथलीट वर्ल्ड गेम्स मेडल (Para Athletes World Games medals)
(4) **Women's World Cup title / महिला वर्ल्ड कप टाइटल (Women's World Cup title) ✔**

Q.78 In November 2025, which of the following parties emerged as the single largest party in the Bihar Legislative Assembly election?

नवंबर 2025 में बिहार विधानसभा चुनाव में निम्नलिखित में से कौन-सा दल सबसे बड़े दल के रूप में उभरा?

(1) BJP / बीजेपी ✔

(2) JD(U) / जेडी(यू)

(3) RJD / आरजेडी

(4) INC / आईएनसी

Q.79 The Constitution (One Hundred and Thirtieth Amendment) Bill, 2025 seeks to amend which of the following constitutional Articles?

संविधान (एक सौ तीसवां संशोधन) विधेयक, 2025 निम्नलिखित में से किस संवैधानिक अनुच्छेद में संशोधन करना चाहता है?

(1) Articles 14, 19 and 21 / अनुच्छेद 14, 19 और 21

(2) Articles 75, 164 and 239AA / अनुच्छेद 75, 164 और 239AA ✔

(3) Articles 44, 45 and 46 / अनुच्छेद 44, 45 और 46

(4) Articles 32, 226 and 227 / अनुच्छेद 32, 226 और 227

Q.80 In humans, which disease is caused by infection with the bacterium Salmonella typhi?

मानव में, साल्मोनेला टाइफी (Salmonella typhi) नामक जीवाणु के संक्रमण से कौन-सा रोग होताहै?

(1) Cholera / हैज़ा (Cholera)

(2) Typhoid fever / आंत्रिक ज्वर (Typhoid fever) ✔

(3) Malaria / मलेरिया (Malaria)

(4) Tuberculosis / यक्ष्मा (Tuberculosis)

Arithmetical and Numerical Ability

Q.81 In an examination, out of maximum marks of 95, B scored 54 marks while A scored 75 marks. What percentage of A's marks were B's marks?

एक परीक्षा में, पूर्णांक 95 में से B को 54 अंक प्राप्त हुए जबकि A को 75 अंक प्राप्त हुए। B के अंक, A के अंकों का कितना प्रतिशत था?

(1) 95%

(2) 138.89%

(3) 78.95%

(4) 72% ✔

Q.82 Simplify:

$\sqrt{324} + \sqrt{121} - (\sqrt{225} \div \sqrt{25})$

सरल कीजिए:

$\sqrt{324} + \sqrt{121} - (\sqrt{225} \div \sqrt{25})$

(1) 22

(2) 23

(3) 18

(4) 26 ✔

Q.83 Two liquids having 25% and 45% concentration of a chemical, respectively, are mixed such that the concentration of the resulting mixture becomes 35%. If the total quantity of the mixture is 40 litres, then find the quantity (in litres) of the liquid having 25% concentration in the mixture.

एक रसायन के क्रमशः 25% और 45% सांद्रता वाले दो द्रवों को इस प्रकार मिश्रित किया जाता है कि परिणामी मिश्रण की सांद्रता 35% हो जाती है। यदि मिश्रण की कुल मात्रा 40 लीटर है, तो मिश्रण में 25% सांद्रता वाले द्रव की मात्रा (लीटर में) ज्ञात कीजिए।

(1) 20 litres / 20 लीटर ✔

(2) 25 litres / 25 लीटर

(3) 35 litres / 35 लीटर

(4) 30 litres / 30 लीटर

Q.84 A school wants to arrange its students in rows for a drill. There are 48 boys and 60 girls in the school. Each row must have an equal number of boys and girls, and all the students must be included. What is the maximum number of rows that can be formed?

एक स्कूल अभ्यास के लिए विद्यार्थियों को पंक्तियों में व्यवस्थित करना चाहता है। स्कूल में 48 लड़के और 60 लड़कियाँ हैं। प्रत्येक पंक्ति में लड़कों और लड़कियों की संख्या बराबर होनी चाहिए और सभी विद्यार्थी सम्मिलित होने चाहिए। अधिकतम कितनी पंक्तियाँ बनाई जा सकती हैं?

(1) 6

(2) 16

(3) 12 ✔

(4) 8

Q.85 If K = 5 ÷ (10 ÷ 5) of 2 and T = 9 − {(3 × 4) ÷ 12 + (5 − 3 + 2)} , then find the value of (K × T + 1)
.

यदि K = 5 ÷ (10 ÷ 5) का 2 है और T = 9 − {(3 × 4) ÷ 12 + (5 − 3 + 2)} है, तो (K × T + 1)
का मान ज्ञात कीजिए।

(1) 7

(2) 9

(3) 6 ✔

(4) 5

Q.86 If a sum of ₹79,700 is deposited at the rate of 3% per annum interest for 2 years, then find the difference between the compound interest (when interest is compounded annually) and the simple interest.

यदि ₹79,700 की धनराशि को 3% वार्षिक ब्याज की दर पर 2 वर्षों के लिए जमा किया जाता है, तो चक्रवृद्धि ब्याज (जब ब्याज वार्षिक रूप से संयोजित होता है) और साधारण ब्याज के बीच का अंतर ज्ञात कीजिए।

(1) ₹71.73 ✔

(2) ₹70.17

(3) ₹74.15

(4) ₹66.86

Q.87 If S is the sum of the first 35 natural numbers and T is the sum of the first 12 even natural numbers that are divisible by 3, then find the value of S - T.

यदि प्रथम 35 प्राकृत संख्याओं का योगफल S है और प्रथम 12 सम प्राकृत संख्याओं का योगफल T है जो कि 3 से विभाज्य हैं, तो S - T का मान ज्ञात कीजिए।

(1) 159

(2) 166

(3) 162 ✔

(4) 155

Q.88 Find the simple interest (in ₹) for 4 years on a borrowed sum of ₹3000 at 7% per annum rate of interest.
₹3000 की उधार ली गई धनराशि पर 7% वार्षिक ब्याज दर पर 4 वर्ष का साधारण ब्याज (₹ में) ज्ञात कीजिए।

(1) 880
(2) 840 ✔
(3) 800
(4) 780

Q.89 Study the pie chart and answer the question that follows.
The given pie chart shows the distribution of the employees of a company in five departments. The total number of employees is 800.

कर्मचारियों का विभागवार वितरण

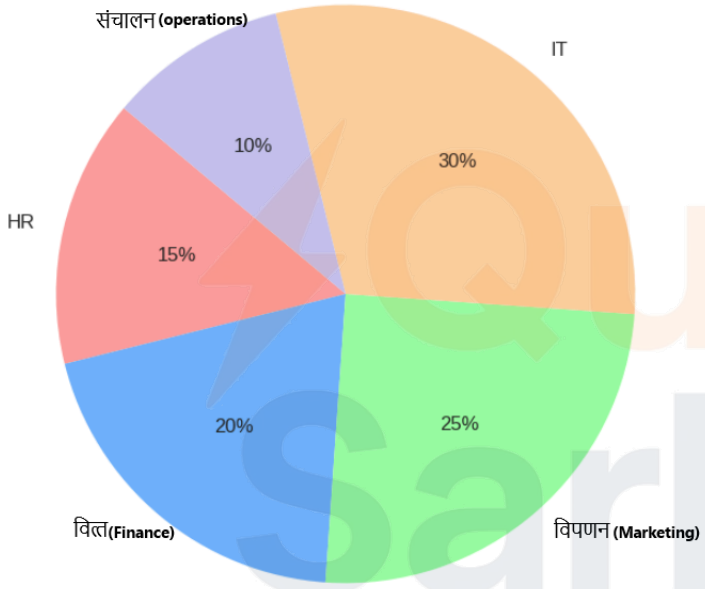

How many more employees are there in the IT and Marketing departments combined than in the HR and Operations departments?
पाई चार्ट का अध्ययन करें और उसके बाद दिए गए प्रश्न का उत्तर दें।
दिए गए पाई चार्ट में एक कंपनी के कर्मचारियों का पाँच विभागों में वितरण (distribution) दर्शायागया है। कर्मचारियों की कुल संख्या 800 है।
HR और संचालन विभागों की तुलना में IT और विपणन विभागों में संयुक्त रूप से कितने अधिक कर्मचारी हैं?

(1) 240 employees / 240 कर्मचारी ✔
(2) 245 employees / 245 कर्मचारी
(3) 260 employees / 260 कर्मचारी
(4) 200 employees / 200 कर्मचारी

Q.90 Three bells ring at intervals of one hour, 90 minutes and one hour 45 minutes, respectively. If the bells ring together at 13:00, when will they ring together again?
तीन घंटियाँ क्रमशः एक घंटे, 90 मिनट और एक घंटे 45 मिनट के अंतराल पर बजती हैं। यदि 13:00 बजे घंटियाँ एक साथ बजती हैं, तो वे पुनः एक साथ कब बजेंगी?

(1) 09:20 the next day / अगले दिन 09:20 बजे
(2) 10:00 the next day / अगले दिन 10:00 बजे ✔
(3) 09:45 the next day / अगले दिन 09:45 बजे
(4) 09:00 the next day / अगले दिन 09:00 बजे

Q.91 The following table shows the number of employees working in different departments of a construction company over five consecutive years.
Year Plumbing Landscaping Electrical Excavation Finance 2010 30 20 65 60 15 2011 10 15 80 80 40 2012 20 35 35 55 70 2013 40 10 50 75 45 2014 50 25 60 90 55 Find the average number of employees in the Excavation department over the last five years.

निम्नलिखित तालिका एक निर्माण कंपनी के विभिन्न विभागों में लगातार पांच वर्षों में कार्यरत कर्मचारियों की संख्या दर्शाती है।
वर्ष प्लंबिंग लैंडस्केपिंग विद्युत उत्खनन वित्त 2010 30 20 65 60 15 2011 10 15 80 80 40 2012 20 35 35 55 70 2013 40 10 50 75 45 2014 50 25 60 90 55 पिछले पांच वर्षों में उत्खनन विभाग में कर्मचारियों की औसत संख्या ज्ञात कीजिए।

(1) 73
(2) 74
(3) **72** ✔
(4) 70

Q.92 In what ratio should a grocer mix two varieties of wheat costing ₹91 per kg and ₹127 per kg so that he earns a profit of 35% by selling the mixture at ₹135 per kg?

एक पंसारी को ₹91 प्रति kg और ₹127 प्रति kg मूल्य के दो किस्म के गेहूं को किस अनुपात में मिलाना चाहिए ताकि यदि वह मिश्रण को ₹135 प्रति kg पर बेचे तो उसे 35% का लाभ हो?

(1) 13:6
(2) 5:3
(3) 5:2
(4) **3:1** ✔

Q.93 The population of a village was 170000. It increased by 15% in the first year and by 30% in the second year. What will be the population of the village after two years?

एक गाँव की जनसंख्या 170000 थी। पहले वर्ष में इसमें 15% की वृद्धिहुई और दूसरे वर्ष में 30% की वृद्धिहुई। दो वर्ष के बाद गाँव की जनसंख्या कितनी होगी?

(1) 221000
(2) 246500
(3) **254150** ✔
(4) 195500

Q.94 Raj had ₹1,323. He divided it between his sons Varun and Ashish and asked them to invest the amounts at 10% per annum interest (compounded annually). It is found that Varun and Ashish received equal amounts after 13 years and 14 years, respectively. How much amount (in ₹) did Raj give to Ashish?

राज के पास ₹1,323 थे। उसने इसे अपने बेटों वरुण और आशीष के बीच विभाजित किया और उन्हें धनराशि को 10% वार्षिक ब्याज (वार्षिक रूप से संयोजित) पर निवेश करने को कहा। यह पाया जाता है कि वरुण और आशीष को क्रमशः 13 वर्ष और 14 वर्ष बाद समान धनराशि प्राप्त हुई। राज ने आशीष को कितनी धनराशि (₹ में) दी?

(1) 480
(2) **630** ✔
(3) 693
(4) 793

QuickSarkari.com | WhatsApp Channel | Telegram: t.me/quick_sarkari

Q.95 In what ratio should a grocer mix two varieties of wheat costing ₹59 per kg and ₹61 per kg so that he earns a profit of 50% by selling the mixture at ₹90 per kg?

एक पंसारी को ₹59 प्रति kg और ₹61 प्रति kg मूल्य के दो किस्म के गेहूं को किस अनुपात में मिलाना चाहिए ताकि यदि वह मिश्रण को ₹90 प्रति kg पर बेचे तो उसे 50% का लाभ हो?

(1) 1:1 ✔

(2) 4:5

(3) 1:2

(4) 3:2

Q.96 Which of the following numbers is divisible by 11?

निम्नलिखित में से कौन-सी संख्या, 11 से विभाज्य है?

(1) 813807

(2) 842622 ✔

(3) 842684

(4) 824859

Q.97 For what value of k is the six-digit number 84353k divisible by 8?

k के किस मान के लिए छह अंकों की संख्या 84353k, 8 से विभाज्य है?

(1) 6 ✔

(2) 4

(3) 2

(4) 8

Q.98 It is given that $121^{0.63} = x$, $121^{0.04} = y$ and $x^z = y^{10}$, then find the approximate value of z.

यह दिया गया है कि $121^{0.63} = x$, $121^{0.04} = y$ और $x^z = y^{10}$ है, तो z का लगभग मान ज्ञात कीजिए।

(1) 1.1

(2) 2.87

(3) 1.62

(4) 0.63 ✔

Q.99 Simplify the following expression.

$(2^7 \times 8^{-3})/4^{-1}$

निम्नलिखित व्यंजक को सरल कीजिए।

$(2^7 \times 8^{-3})/4^{-1}$

(1) 1/2

(2) 2

(3) 0

(4) 1 ✔

Q.100 One variety of a commodity costs ₹8 per gram and another variety costs ₹13 per gram. In what ratio should the two varieties be mixed so that the cost of the mixture becomes ₹11 per gram?

एक वस्तु की एक किस्म का मूल्य ₹8 प्रति ग्राम है और दूसरी किस्म का मूल्य ₹13 प्रति ग्राम है। दोनों किस्मों को किस अनुपात में मिश्रित किया जाना चाहिए ताकि मिश्रण का मूल्य ₹11 प्रति ग्राम होजाए?

(1) 3 : 2

(2) 4 : 3

(3) 3 : 4

(4) 2 : 3 ✔

Q.101 One pipe can fill a tank in 6 hours, and another pipe can fill it in 9 hours. How much time will both the pipes take together to fill the tank?

एक पाइप एक टैंक को 6 घंटे में भर सकता है, और दूसरा पाइप उसे 9 घंटे में भर सकता है। दोनोंपाइपों को एक साथ टंकी को भरने में कितना समय लगेगा?

(1) 4 hours 30 minutes / 4 घंटे 30 मिनट

(2) 3 hours / 3 घंटे

(3) 4 hours / 4 घंटे

(4) 3 hours 36 minutes / 3 घंटे 36 मिनट ✔

Q.102 The price of an article is ₹2,000. The shopkeeper gives two successive discounts of 15% and 10%. Find the selling price of the article.

एक वस्तु की कीमत ₹2,000 है। दुकानदार 15% और 10% की दो क्रमिक छूट देता है। वस्तु का विक्रय मूल्य ज्ञात कीजिए।

(1) ₹1,550

(2) ₹1,520

(3) ₹1,540

(4) ₹1,530 ✔

Q.103 Madhuri can do the work of a project in 20 days and Nalini can do it in 30 days. In how many days will they both together complete that work?

माधुरी एक प्रोजेक्ट का कार्य 20 दिन में कर सकती है और नलिनी इसे 30 दिन में कर सकती है। वेदोनों एकसाथ मिलकर उस कार्य को कितने दिन में पूरा करेंगी?

(1) 15 days / 15 दिन

(2) 14 days / 14 दिन

(3) 10 days / 10 दिन

(4) 12 days / 12 दिन ✔

Q.104 A cuboid of dimensions 15 cm × 9 cm × 6 cm is melted to form small cubes of edge 3 cm. Find the number of cubes thus formed.

15 cm × 9 cm × 6 cm विमाओं वाले एक घनाभ को पिघलाकर 3 cm कोर वाले छोटे घन बनाए जाते हैं। इस प्रकार से बनने वाले घनों की संख्या ज्ञात कीजिए।

(1) 30 ✔

(2) 24

(3) 27

(4) 18

Q.105 The volume of a cone is 1232 cm^3. If the height of the cone is 24 cm, then find the radius (in cm) of the base of the cone. (Use π = 22/7)

एक शंकु का आयतन 1232 cm^3 है। यदि शंकु की ऊँचाई 24 cm है, तो शंकु के आधार की त्रिज्या (cm में) ज्ञात कीजिए। (π = 22/7 का उपयोग कीजिए)

(1) 3.5
(2) 10.5
(3) **7 ✔**
(4) 12

Q.106 The length of the space diagonal of a cube is equal to the diagonal of a square having an area of 196 cm^2. Find the volume of the cube. (Rounded off to 2 decimal places)

एक घन के समष्टि विकर्ण (space diagonal) की लंबाई, 196 cm^2 क्षेत्रफल वाले एक वर्ग के विकर्ण के बराबर है। घन का आयतन ज्ञात कीजिए। (दशमलव के 2 स्थानों तक पूर्णांकित)

(1) 1506.02 cm^3
(2) **1493.64 cm^3 ✔**
(3) 1427.54 cm^3
(4) 1459.42 cm^3

Q.107 A metallic sphere of radius 14 cm is melted to form three relatively smaller spheres. If the radii of two of the smaller spheres are 5 cm and 9 cm, respectively, then what will be the radius of the third sphere (rounded off to one decimal place)?

14 cm त्रिज्या वाले एक धात्विक गोले को पिघलाकर तीन अपेक्षाकृत छोटे गोले बनाए जाते हैं। यदिदो छोटे गोलों की त्रिज्याएं क्रमशः 5 cm और 9 cm हैं, तो तीसरे गोले की त्रिज्या (दशमलव के एकस्थान तक पूर्णांकित) कितनी होगी?

(1) 14.6 cm
(2) **12.4 cm ✔**
(3) 13.6 cm
(4) 11.4 cm

Q.108 Divide ₹11,200 into three parts such that 1/2 of the first part, 1/4 of the second part and 1/8 of the third part are equal. Find the value (in ₹) of the first part.

₹11,200 को तीन हिस्से में इस प्रकार विभाजित कीजिए कि पहले हिस्से का 1/2 भाग, दूसरे हिस्सेका 1/4 भाग और तीसरे हिस्से का 1/8 भाग बराबर हो। पहले हिस्से का मान (₹ में) ज्ञात कीजिए।

(1) 1300
(2) 1500
(3) 1400
(4) **1600 ✔**

QuickSarkari.com | WhatsApp Channel | Telegram: t.me/quick_sarkari

Q.109 The volume of a right circular cone is 1232 cm^3 and its height is 24 cm. Find the total surface area of the cone.
Take π = 22/7

एक लंबवृत्तीय शंकु का आयतन 1232 cm^3 और ऊँचाई 24 cm है। शंकु का सम्पूर्ण पृष्ठीय क्षेत्रफल ज्ञात कीजिए।
लीजिए π = 22/7

(1) 700 sq cm
(2) 407 sq cm
(3) 714 sq cm
(4) **704 sq cm ✔**

Q.110 A rectangle is formed by opening up a cylinder of height 35 cm and radius 10 cm (it is opened along its curved surface). Find the area (in cm^2) of the rectangle. (Use π = 22/7)

35 cm ऊंचाई और 10 cm त्रिज्या वाले एक बेलन को खोल करके एक आयात बनाया गया है (इसे इसके वक्र पृष्ठ के अनुदिश खोला गया है)। आयात का क्षेत्रफल (cm^2 में) ज्ञात करें। (π = 22/7 का प्रयोग करें)

(1) **2200 ✔**
(2) 2100
(3) 1980
(4) 2400

Q.111 Anandi bought a mobile phone for ₹15,500. She sold it at a profit of 12%. Find the selling price (in ₹).

आनंदी ने ₹15,500 में एक मोबाइल फोन खरीदा। उसने इसे 12% लाभ पर बेचा दिया। विक्रय मूल्य (₹ में) ज्ञात कीजिए।

(1) **17,360 ✔**
(2) 17,310
(3) 17,320
(4) 17,300

Q.112 A, B and C invest ₹60,000, ₹50,000 and ₹40,000, respectively, in a business. A invests for 10 months, B for 12 months and C for 15 months. At the end of the year, the total profit earned is ₹3,85,500. Find the share of C in the profit.

A, B और C एक व्यवसाय में क्रमशः ₹60,000, ₹50,000 और ₹40,000 का निवेश करते हैं। A, 10 महीने के लिए, B, 12 महीने के लिए और C, 15 महीने के लिए निवेश करता है। वर्ष के अंत में, अर्जित कुल लाभ ₹3,85,500 है। लाभ में C का हिस्सा ज्ञात कीजिए।

(1) ₹ 1,31,320
(2) ₹ 1,29,600
(3) ₹ 1,30,500
(4) **₹ 1,28,500 ✔**

Q.113 The area of a square field is equal to 279 m^2. Find its perimeter.

एक वर्गाकार क्षेत्र का क्षेत्रफल, 279 m^2 के बराबर है। इसका परिमाप ज्ञात कीजिए।

(1) 13√26 m
(2) **12√31 m ✔**
(3) 11√26 m
(4) 14√31 m

Q.114 Two trains of lengths 149.25 m and 102 m are running on parallel tracks in opposite directions at speeds of 72.9 km/h and 108 km/h, respectively. Find the time taken by them to cross each other.

149.25 m और 102 m लंबाई वाली दो रेलगाड़ियाँ समानांतर पटरियों पर विपरीत दिशाओं में क्रमशः 72.9 km/h और 108 km/h की चाल से चल रही हैं। उनके द्वारा एक-दूसरे को पार करने में लगने वाला समय ज्ञात कीजिए।

(1) 5 seconds / 5 सेकंड ✔

(2) 20 seconds / 20 सेकंड

(3) 10 seconds / 10 सेकंड

(4) 15 seconds / 15 सेकंड

Q.115 Find the fourth proportional to 14, 17 and 84.

14,17 और 84 का चतुर्थानुपाती ज्ञात कीजिए।

(1) 102 ✔

(2) 100

(3) 104

(4) 106

Q.116 The marked price of a washing machine is ₹30000. It is sold to a retailer at two successive discounts of 40% and 16%. The retailer wants to earn a profit of 30% on his cost price after giving a discount of 46% (on the new marked price) to the customer. At what price should he mark the washing machine?

एक वाशिंग मशीन का अंकित मूल्य ₹30000 है। इसे एक खुदरा विक्रेता को 40% और 16% की दो क्रमिक छूट पर बेचा जाता है। खुदरा विक्रेता, ग्राहक को 46% की छूट (नए अंकित मूल्य पर) देने के बाद अपने लागत मूल्य पर 30% का लाभ अर्जित करना चाहता है। उसे वाशिंग मशीन पर कितना मूल्य अंकित करना चाहिए?

(1) ₹36276

(2) ₹36425

(3) ₹36400 ✔

(4) ₹36223

Q.117 Find the mean proportional between 8 and 18.

8 और 18 का माध्यानुपाती ज्ञात कीजिए।

(1) 8

(2) 14

(3) 16

(4) 12 ✔

Q.118 The lengths of the parallel sides of a trapezium are 30 cm and 20 cm. The lengths of the non-parallel sides are 13 cm and 13 cm. Find the area of the trapezium.

एक समलंब की समांतर भुजाओं की लंबाई 30 cm और 20 cm है। असमांतर भुजाओं की लंबाई 13 cm और 13 cm है। समलंब का क्षेत्रफल ज्ञात कीजिए।

(1) 320 cm^2

(2) 280 cm^2

(3) 300 cm^2 ✔

(4) 310 cm^2

Q.119 A cyclist covers the first 40 km of his journey at a speed of 20 km/h and the next 20 km at a speed of 40 km/h. Find the average speed for the entire journey.

एक साइकिल चालक अपनी यात्रा के पहले 40 km की दूरी 20 km/h की चाल से और अगले 20 km की दूरी 40 km/h की चाल से तय करता है। पूरी यात्रा के लिए औसत चाल ज्ञात कीजिए।

(1) 28 km/h

(2) 30 km/h

(3) 34 km/h

(4) 24 km/h ✔

Q.120 A shopkeeper bought six identical mobile phones for ₹75,000. He sold two of these mobile phones for ₹65,000. Find the profit percentage on the sale of these two mobile phones.

एक दुकानदार ने ₹75,000 में छह एकसमान मोबाइल फोन खरीदे। उसने इनमें से दो मोबाइल फोन को ₹65,000 में बेच दिया। इन दोनों मोबाइल फोन की बिक्री पर लाभ प्रतिशत ज्ञात कीजिए।

(1) 161%

(2) 160% ✔

(3) 163%

(4) 158%

English Language and Comprehension

Q.121 Select the option that can be used as a one word substitute for the underlined words.
The lecturer was a person who criticised cherished beliefs, often questioning cultural norms that others accepted without hesitation.

(1) Recluse

(2) Epicure

(3) Zealot

(4) Iconoclast ✔

Q.122 Rearrange the segments to form a coherent statement. The first segment (1) is fixed.
(1) The orchestra's performance transcended expectation, (P) weaving together disparate melodies (Q) into a tapestry of sound and emotion (R) beyond mere technical excellence, (S) each musician contributing their unique voice

(1) SPQR

(2) PQRS

(3) RSPQ ✔

(4) QRSP

Q.123 Choose the correct option to complete the sentence.
_____ had I closed my eyes _____ the alarm clock began to blare.

(1) As soon as , while

(2) Hardly , when ✔

(3) Scarcely , before

(4) No sooner , then

Q.124 In the given question, a statement divided into different segments is given. Rearrange all the segments to form a coherent statement.
(O) True learning / (P) curiosity and persistence, / (Q) not from memorizing facts / (R) arises from / (S) without understanding

(1) ORPQS ✔
(2) OQPRS
(3) OQRSP
(4) ORSPQ

Q.125 Choose the option that best completes the sentence.
Astronomers kept observing the distant star _____ its light had dimmed unexpectedly, _____ they could determine whether a new planet was passing in front of it.

(1) because / so that
(2) unless / therefore
(3) as / and
(4) when / and ✔

Q.126 Choose the most appropriate option to complete the sentence.
The teacher appreciated the student's ____ effort in completing the assignment on time.

(1) diligent ✔
(2) negligible
(3) reckless
(4) casual

Q.127 In the given question, a statement divided into different segments is given. Rearrange all the segments to form a coherent statement.
Every weekend (O) / in the quiet corner of the library, (P) / lost in a world of stories (Q) / she would spend hours (R) / turning page after page, (S)

(1) OPRQS
(2) ORQPS ✔
(3) ORPSQ
(4) ORSPQ

Q.128 In the given question, a statement divided into different segments is given. Rearrange all the segments to form a coherent statement.
(O) resulting in widening disparities across regions, (P) the digital literacy initiatives progressed unevenly, (Q) as several districts reported delays in infrastructure deployment, (R) which hindered outreach programmes, (S) and limited access to essential services.

(1) OPSQR
(2) PQRSO ✔
(3) QOPRS
(4) RPSOQ

QuickSarkari.com | WhatsApp Channel | Telegram: t.me/quick_sarkari

Q.129 Choose the option that best replaces the underlined words with a single word.
Despite several warnings, he showed a careless lack of concern towards the rules.

(1) negligence ✔
(2) diligence
(3) obedience
(4) vigilance

Q.130 In the given question, a statement divided into different segments is given. Rearrange all the segments to form a coherent and meaningful statement.
the marathon runner (O) / crossed the finish line (P) / to the cheers of the crowd (Q) / though exhausted and blistered (R) / with an expression of quiet triumph (S)

(1) OPRQS ✔
(2) OPQRS
(3) OQPRS
(4) ORPSQ

Q.131 Identify the sentence that uses the correct active voice.

(1) The cake was baked yesterday.
(2) The house is being cleaned now by the maid.
(3) Sarah baked the cake. ✔
(4) The letter was written last week.

Q.132 Choose the option that best replaces the underlined words with a single word.
Her explanation was excessively long and filled with unnecessary details, making it hard to follow.

(1) redundant
(2) descriptive
(3) verbose ✔
(4) elaborate

Q.133 Choose the option that best completes the sentence.
Many people continue to use fossil fuels, _____ they are fully aware of the environmental consequences.

(1) so that
(2) in case
(3) since
(4) though ✔

Q.134 Complete the sentence with the most suitable pair of adjectives.
Despite his _____ appearance, the scientist's ideas were remarkably _____ and ahead of his time.

(1) flamboyant, outdated
(2) modest, revolutionary ✔
(3) dull, insignificant
(4) impressive, ordinary

QuickSarkari.com | WhatsApp Channel | Telegram: t.me/quick_sarkari

Q.135 Select the correct one-word substitute for the given expression.
A person who enjoys causing pain or suffering to others

(1) Masochist
(2) Sadist ✔
(3) Optimist
(4) Misogynist

Q.136 Rearrange the following segments to form a coherent statement.
O. the ancient temple stood atop the hill
P. attracting pilgrims from distant villages
Q. surrounded by dense, misty forests
R. and its bells tolled softly with the morning breeze
S. its stone walls weathered by centuries of rain and sun

(1) O, S, Q, R, P ✔
(2) O, S, R, Q, P
(3) O, Q, P, S, R
(4) Q, O, P, R, S

Q.137 Choose the most suitable one-word substitution for the phrase.
A person who looks at the bright side of things.

(1) Opportunist
(2) Idealist
(3) Realist
(4) Optimist ✔

Q.138 Select the correct one-word substitute for the given expression.
A person who takes great pleasure in fine food and drink

(1) Epicure ✔
(2) Chef
(3) Herbivore
(4) Glutton

Q.139 Choose the option that best substitutes the underlined expression with one word.
The speaker spoke without proper thought or preparation during the debate.

(1) confidently
(2) impulsively ✔
(3) logically
(4) fluently

Q.140 Choose the option that best completes the sentence.
The team's _____ spirit and _____ attitude towards defeat earned them respect even in loss.

(1) indomitable / graceful ✔
(2) weak / arrogant
(3) casual / careless
(4) reckless / impatient

Q.141 Choose the option that corrects the spelling error in the following sentence.
The soldier pledged his alleigence to the nation during the ceremony.

(1) soldeir
(2) **allegiance ✔**
(3) nateon
(4) cerimony

Q.142 Identify the misspelt word.

(1) Compliance
(2) **Millenium ✔**
(3) Embarrassment
(4) Questionnaire

Q.143 Choose the sentence that is in the passive voice.

(1) **She was attacked by a dangerous dog. ✔**
(2) Raju gave Raman a book for his birthday.
(3) Sheela sent Sudha a cheque for a thousand dollars.
(4) They called off the excursion trip.

Q.144 Select the INCORRECTLY spelt word in the given sentence.
Despite his perseverence and dedication, the committee questioned his professionalism and efficacy.

(1) **perseverence ✔**
(2) persistence
(3) professionalism
(4) efficacy

Q.145 Identify the misspelt word in the following sentence.
Participation in extracurricular activites is encouraged.

(1) **activites ✔**
(2) extracurricular
(3) Participation
(4) encouraged

Q.146 Rectify the sentence by selecting the correct spelling from the options.
The professor's elaborative discource on the theory of quantum mechanics was both illuminating and perplexing for the students.

(1) **discourse ✔**
(2) discorse
(3) dicsource
(4) discousre

Q.147 Which of the following sentences correctly uses the Future Perfect Continuous Tense?

(1) By next June, they will have completed the bridge for two years.
(2) By next June, they are constructing the bridge for two years.
(3) By next June, they will complete the construction of the bridge.
(4) **By next June, they will have been constructing the bridge for two years. ✔**

Q.148 Complete the sentence correctly by choosing the appropriate option She said, "I _____ to the new office tomorrow."

(1) went

(2) **am going ✔**

(3) will go

(4) go

Q.149 Which of the following sentences correctly uses the Present Perfect Continuous Tense?

(1) She is working on the project since morning.

(2) She works on the project since morning.

(3) **She has been working on the project since morning. ✔**

(4) She has worked on the project since morning.

Q.150 Choose the sentence that uses the correct indirect speech.

(1) My mother asked me that if I was feeling better that morning.

(2) Sarah asked her friend if he will join the club the next week.

(3) **He inquired whether the bus would arrive at the station the following hour. ✔**

(4) The teacher asked the students if they have finished the test the previous day.

Q.151

Read the passage and answer the questions that follow.
As Hallee McCoombes approaches the finish line of the 800-metre run for kids with a disability, the crowd is cheering wildly and chanting her name. The 10-year-old para-athlete had spent months preparing for the 2022 School Sport Australia Track & Field Championships in Brisbane. Now she has the hyper-focussed expression that has become her trademark; anyone who has seen her compete knows that nothing will stop her now.
Hallee was born with spina bifida, a neural-tube defect that affects how the spine and spinal cord form in the womb. Her mother, Christine McCoombes, 38, shudders when she recalls learning about Hallee's diagnosis. The doctors weren't sure about her brain function because she had hydrocephalus and didn't know how well she would function physically or mentally." It's no wonder that, regardless of how many times Hallee's parents watch their determined daughter compete, their hearts burst with pride.

Select the title that best reflects Hallee's spirit and perseverance.

(1) Champion in Waiting

(2) The Miracle of Brisbane

(3) **Born to Run ✔**

(4) The Race That Changed Everything

Q.152

Read the passage and answer the questions that follow.
As Hallee McCoombes approaches the finish line of the 800-metre run for kids with a disability, the crowd is cheering wildly and chanting her name. The 10-year-old para-athlete had spent months preparing for the 2022 School Sport Australia Track & Field Championships in Brisbane. Now she has the hyper-focussed expression that has become her trademark; anyone who has seen her compete knows that nothing will stop her now.
Hallee was born with spina bifida, a neural-tube defect that affects how the spine and spinal cord form in the womb. Her mother, Christine McCoombes, 38, shudders when she recalls learning about Hallee's diagnosis. The doctors weren't sure about her brain function because she had hydrocephalus and didn't know how well she would function physically or mentally." It's no wonder that, regardless of how many times Hallee's parents watch their determined daughter compete, their hearts burst with pride.

The main theme of the passage is—

(1) Courage and determination in overcoming adversity ✔
(2) Limitations of physical disabilities
(3) The medical condition of spina bifida
(4) The challenges of sports training

Q.153

Read the passage and answer the questions that follow.
As Hallee McCoombes approaches the finish line of the 800-metre run for kids with a disability, the crowd is cheering wildly and chanting her name. The 10-year-old para-athlete had spent months preparing for the 2022 School Sport Australia Track & Field Championships in Brisbane. Now she has the hyper-focussed expression that has become her trademark; anyone who has seen her compete knows that nothing will stop her now.
Hallee was born with spina bifida, a neural-tube defect that affects how the spine and spinal cord form in the womb. Her mother, Christine McCoombes, 38, shudders when she recalls learning about Hallee's diagnosis. The doctors weren't sure about her brain function because she had hydrocephalus and didn't know how well she would function physically or mentally." It's no wonder that, regardless of how many times Hallee's parents watch their determined daughter compete, their hearts burst with pride.

Choose the factual statement that is explicitly supported by the passage.

(1) Hallee's diagnosis was confirmed when she was ten years old.
(2) The 2022 School Sport Australia Championships took place in Sydney.
(3) Hallee's family discouraged her from pursuing athletics.
(4) Hallee was born with a condition known as spina bifida. ✔

Q.154

Read the passage and answer the questions that follow.
As Hallee McCoombes approaches the finish line of the 800-metre run for kids with a disability, the crowd is cheering wildly and chanting her name. The 10-year-old para-athlete had spent months preparing for the 2022 School Sport Australia Track & Field Championships in Brisbane. Now she has the hyper-focussed expression that has become her trademark; anyone who has seen her compete knows that nothing will stop her now.
Hallee was born with spina bifida, a neural-tube defect that affects how the spine and spinal cord form in the womb. Her mother, Christine McCoombes, 38, shudders when she recalls learning about Hallee's diagnosis. The doctors weren't sure about her brain function because she had hydrocephalus and didn't know how well she would function physically or mentally." It's no wonder that, regardless of how many times Hallee's parents watch their determined daughter compete, their hearts burst with pride.

Determine how the author organizes the ideas within the passage.

(1) Instructional essay on rehabilitation techniques.
(2) First-person account focusing on personal medical experience.
(3) **Third-person narrative describing emotional and physical triumph. ✔**
(4) Persuasive argument promoting disability awareness.

Q.155

Read the passage and answer the questions that follow.
As Hallee McCoombes approaches the finish line of the 800-metre run for kids with a disability, the crowd is cheering wildly and chanting her name. The 10-year-old para-athlete had spent months preparing for the 2022 School Sport Australia Track & Field Championships in Brisbane. Now she has the hyper-focussed expression that has become her trademark; anyone who has seen her compete knows that nothing will stop her now.
Hallee was born with spina bifida, a neural-tube defect that affects how the spine and spinal cord form in the womb. Her mother, Christine McCoombes, 38, shudders when she recalls learning about Hallee's diagnosis. The doctors weren't sure about her brain function because she had hydrocephalus and didn't know how well she would function physically or mentally." It's no wonder that, regardless of how many times Hallee's parents watch their determined daughter compete, their hearts burst with pride.

Choose the option that is the antonym of recall.

(1) **Forget ✔**
(2) Recollect
(3) Retain
(4) Remember

Q.156

Read the given passage and answer the questions that follow.
Cooking, once regarded merely as a domestic necessity, has evolved into an expressive and intellectual pursuit that transcends the kitchen. For many, it is not simply about sustenance but about creativity and mindfulness — a means to explore cultures, experiment with ingredients, and challenge one's senses. The rhythmic chopping of vegetables, the gradual transformation of raw elements into harmonious flavours, and the anticipation that fills the air evoke both art and science. Behind every dish lies a story — of heritage, adaptation, and passion. Modern culinary practices, though aided by technology, still draw their essence from patience and intuition. Recipes may guide, but it is the instinct of the cook that gives life to the meal. Whether one follows tradition or innovation, cooking remains an intimate dialogue between the creator and the creation — a process that nourishes not just the body but the imagination and spirit as well.

What is the central idea conveyed in the passage?

(1) Cooking is a technical process guided strictly by recipes.
(2) Cooking is a laborious domestic duty essential for survival.
(3) Cooking is an industrial craft defined by technological precision.
(4) Cooking is a fusion of creativity, mindfulness, and cultural expression. ✔

Q.157

Read the given passage and answer the questions that follow.
Cooking, once regarded merely as a domestic necessity, has evolved into an expressive and intellectual pursuit that transcends the kitchen. For many, it is not simply about sustenance but about creativity and mindfulness — a means to explore cultures, experiment with ingredients, and challenge one's senses. The rhythmic chopping of vegetables, the gradual transformation of raw elements into harmonious flavours, and the anticipation that fills the air evoke both art and science. Behind every dish lies a story — of heritage, adaptation, and passion. Modern culinary practices, though aided by technology, still draw their essence from patience and intuition. Recipes may guide, but it is the instinct of the cook that gives life to the meal. Whether one follows tradition or innovation, cooking remains an intimate dialogue between the creator and the creation — a process that nourishes not just the body but the imagination and spirit as well.

Which title best captures the essence of the passage?

(1) The Science of Ingredients
(2) The Art Beyond Recipes ✔
(3) The Kitchen Revolution
(4) The Global Taste Palette

Q.158

Read the given passage and answer the questions that follow.
Cooking, once regarded merely as a domestic necessity, has evolved into an expressive and intellectual pursuit that transcends the kitchen. For many, it is not simply about sustenance but about creativity and mindfulness — a means to explore cultures, experiment with ingredients, and challenge one's senses. The rhythmic chopping of vegetables, the gradual transformation of raw elements into harmonious flavours, and the anticipation that fills the air evoke both art and science. Behind every dish lies a story — of heritage, adaptation, and passion. Modern culinary practices, though aided by technology, still draw their essence from patience and intuition. Recipes may guide, but it is the instinct of the cook that gives life to the meal. Whether one follows tradition or innovation, cooking remains an intimate dialogue between the creator and the creation — a process that nourishes not just the body but the imagination and spirit as well.

What is the tone of the passage?

(1) Humorous
(2) **Reflective ✔**
(3) Pessimistic
(4) Sarcastic

Q.159

Read the given passage and answer the questions that follow.
Cooking, once regarded merely as a domestic necessity, has evolved into an expressive and intellectual pursuit that transcends the kitchen. For many, it is not simply about sustenance but about creativity and mindfulness — a means to explore cultures, experiment with ingredients, and challenge one's senses. The rhythmic chopping of vegetables, the gradual transformation of raw elements into harmonious flavours, and the anticipation that fills the air evoke both art and science. Behind every dish lies a story — of heritage, adaptation, and passion. Modern culinary practices, though aided by technology, still draw their essence from patience and intuition. Recipes may guide, but it is the instinct of the cook that gives life to the meal. Whether one follows tradition or innovation, cooking remains an intimate dialogue between the creator and the creation — a process that nourishes not just the body but the imagination and spirit as well.

What can be inferred about the author's perception of modern cooking?

(1) It has lost its traditional essence due to rapid modernization.
(2) **It combines innovation with the timeless values of patience and intuition. ✔**
(3) It relies on precise measurements more than personal instinct.
(4) It depends entirely on technological efficiency and digital guidance.

QuickSarkari.com | WhatsApp Channel | Telegram: t.me/quick_sarkari

Q.160

Read the given passage and answer the questions that follow.
Cooking, once regarded merely as a domestic necessity, has evolved into an expressive and intellectual pursuit that transcends the kitchen. For many, it is not simply about sustenance but about creativity and mindfulness — a means to explore cultures, experiment with ingredients, and challenge one's senses. The rhythmic chopping of vegetables, the gradual transformation of raw elements into harmonious flavours, and the anticipation that fills the air evoke both art and science. Behind every dish lies a story — of heritage, adaptation, and passion. Modern culinary practices, though aided by technology, still draw their essence from patience and intuition. Recipes may guide, but it is the instinct of the cook that gives life to the meal. Whether one follows tradition or innovation, cooking remains an intimate dialogue between the creator and the creation — a process that nourishes not just the body but the imagination and spirit as well.

Which of the following statements is directly supported by the passage?

(1) Technology has completely replaced traditional cooking methods.
(2) Culinary expression excludes personal creativity and emotion.
(3) **Cooking nourishes both the imagination and the human spirit. ✔**
(4) Every cook must strictly follow recipes to succeed.

Hindi Language and Comprehension

Q.161 दिए गए विकल्पों में से उचित कारक द्वारा वाक्य पूर्ण करें।
मेरे _____गीत बजाया गया।

(1) से
(2) ने
(3) को
(4) **द्वारा ✔**

Q.162 रिक्त स्थान के लिए उपयुक्त कारक का चयन दिए गए विकल्पों में से करें- विकास..... भी उपवास रखा था।

(1) से
(2) में
(3) को
(4) **ने ✔**

Q.163 दिए गए वाक्य में उचित कारक का चयन करके रिक्त स्थान की पूर्ति करें - इंद्रावती राष्ट्रीय उद्यान भारत के छत्तीसगढ़ राज्य के बीजापुर ज़िले ----------स्थित एक राष्ट्रीय उद्यान है।

(1) से
(2) **में ✔**
(3) ने
(4) को

Q.164 'बिल्ली के गले में घंटी बाँधना ' लोकोक्ति का एक उचित अर्थ कौन सा है?

(1) उपयोगिता का महत्त्व होता है।
(2) **जोखिम भरा काम। ✔**
(3) जान बचाकर भागना ।
(4) समझदारी से काम करना।

Q.165 वाक्यांश के लिए सार्थक शब्द चुनें- जो कम जानता हो -

(1) अल्पज्ञ ✔

(2) अल्प

(3) अवध्य

(4) अज्ञानी

Q.166 'कंगाली में आटा गीला' लोकोक्ति का सही अर्थ है-

(1) विपत्ति पर विपत्ति आना ✔

(2) निर्धन में विनम्रता होती है

(3) शुभ कार्य होना

(4) अत्यधिक परिश्रम के बाद साधारण लाभ

Q.167 नीचे दी गयी लोकोक्ति का सही अर्थ चुनें- 'आँसू एक नहीं कलेजा टूक-टूक'

(1) कभी कभी दुःखी होना

(2) रोने का दिखावा करना ✔

(3) सच में दुःखी होना

(4) हँसना

Q.168 निम्नलिखित वाक्य को क्रम में लिखें।
शारीरिक अधिक अच्छा होता बल से बुद्धिका बल है।

(1) शारीरिक बल से बुद्धि का बल अधिक अच्छा होता है। ✔

(2) बल से बुद्धि शारीरिक का बल अधिक अच्छा होता है।

(3) अधिक अच्छा होता शारीरिक बुद्धि बल से का बल है।

(4) बल से बुद्धि का होता है बल अधिक शारीरिक अच्छा ।

Q.169 प्रस्तुत वाक्यांश के लिए सार्थक शब्द का चयन करें - जिसमें कुछ करने की क्षमता न हो

(1) अक्षधूर्त

(2) अक्षम ✔

(3) अक्षम्य

(4) अक्षय

Q.170 'गूलर का फूल होना' मुहावरे का सही अर्थ है-

(1) प्रसिद्ध होना

(2) असंभव बात ✔

(3) कोमल होना

(4) बहुत विद्वान होना

Q.171 उपयुक्त 'क्रिया' का चयन कर रिक्त स्थान की पूर्ति कीजिए।
' सुखमनी अपने पति को चिट्ठियाँ .....रही है। '

(1) पिसवा

(2) उड़वा

(3) चलवा

(4) लिखवा ✔

Q.172 दिए गए विकल्पों में से उचित कारक द्वारा वाक्य पूर्ण करें।
घड़ी मेज ____ रखी है।

(1) को
(2) में
(3) से
(4) **पर ✔**

Q.173 निम्नलिखित वाक्यांश के लिए सार्थक शब्द है - किसी के पास रखी हुई दूसरे की संपत्ति

(1) अधिकारी
(2) उच्छिष्ट
(3) ऋणी
(4) **न्यास ✔**

Q.174 निम्नलिखित में से 'रास्ता देखना' मुहावरे का उचित अर्थ होगा ?

(1) दूसरों का अनुसरण करना
(2) **प्रतीक्षा करना ✔**
(3) रास्ता बनाना
(4) रास्ता भूल जाना

Q.175 'वह कुल्हाड़ी ..... वृक्ष काटता है' उचित विभक्ति चिह्न का प्रयोग कीजिये-

(1) का
(2) में
(3) **से ✔**
(4) के लिए

Q.176 के सही अर्थ का चयन करें- लोकोक्ति 'एक तवे की रोटी, क्या छोटी क्या मोटी'

(1) तवे पर छोटी और मोटी रोटी सेकना
(2) **कोई भेदभाव नहीं है ✔**
(3) अपनी बात से पलट जाना
(4) एक जैसे दुर्गुण वाले

Q.177 सर्वोचित क्रिया शब्द से वाक्य का रिक्त स्थान पूर्ण करें- मौसम सुहावना है ठंडी हवा ..... है।

(1) हो रही
(2) पड़ रही
(3) दिख रही
(4) **चल रही ✔**

Q.178 'जो दिए जाने योग्य न हो' वाक्यांश के लिए सार्थक शब्द है-

(1) अंतरिक्ष
(2) अचेतन
(3) **अदेय ✔**
(4) अनन्य

QuickSarkari.com | WhatsApp Channel | Telegram: t.me/quick_sarkari

Q.179 'शत्रुओं को मार डालने वाला' वाक्यांश के लिए सार्थक शब्द होगा -

(1) धनञ्जय

(2) मृत्युंजय

(3) शत्रुंजय

(4) शत्रुघ्न ✔

Q.180 निम्नलिखित अव्यवस्थित क्रम वाले वाक्य खण्डों को क,ख,ग,घ की संज्ञा दी गई है। इन्हें ध्यान से पढ़कर,दिए गए विकल्पों में से उचित वाक्य क्रम वाला विकल्प चुनिए – क - के लिए आवश्यक है ख - हमें आस-पास के क्षेत्र को स्वच्छ रखना चाहिए ग - क्योंकि स्वच्छता न केवल स्वस्थ जीवन घ – बल्कि समाज की सुंदरता के लिए भी महत्वपूर्ण है

(1) ग ख क घ

(2) ख ग क घ ✔

(3) घ ग ख क

(4) क ग ख घ

Q.181 निम्नलिखित वाक्य के रेखांकित शब्द का विलोम बताएं - 'मुझे पैसों की आवश्यकता है।'

(1) आग्रह

(2) अवश्य

(3) अनावश्यकता ✔

(4) जरूरत

Q.182 दिये गए वाक्य के रेखांकित शब्द का पर्यायवाची शब्द चुनिए – गंगा नदी भारतीय सभ्यता की रीढ़ मानी जाती है।

(1) सुरसरि ✔

(2) सरिता

(3) कामिनी

(4) कालिंदी

Q.183 निम्नलिखित में से किस वाक्य में 'यश' शब्द के पर्याय का प्रयोग नहीं हुआ है?

(1) उसने अपनी मेहनत से बड़ी ख्याति प्राप्त की।

(2) उसकी शोहरत पूरे शहर में फैल गई।

(3) वह चुपचाप बिना किसी पहचान के जीवन जीता है। ✔

(4) उसके नाम का डंका दूर-दूर तक बजता है।

Q.184 निम्नलिखित वाक्य के किस शब्द में वर्तनी से संबंधित त्रुटि है?
'डाकूयों की टोली कल रात इधर से ही गुजरी थी।

(1) टोली

(2) रात

(3) डाकूयों ✔

(4) गुजरी

Q.185 निम्नलिखित वाक्य में 'स्वल्प' के लिए उचित विलोम शब्द की पूर्ति कीजिए- विद्यार्थी को स्वल्प समय में _____कार्य पूरा करना चाहिए।

(1) सीमित

(2) थोड़ा

(3) अत्यधिक ✔

(4) न्यून

Q.186 निम्नलिखित वाक्य के रेखांकित शब्द का पर्यायवाची कौन-सा नहीं है?
'सांसारिक मोह माया का त्याग करो।'

(1) संयोग ✔
(2) प्रपंच
(3) धोखा
(4) छल

Q.187 निम्नलिखित विकल्पों में से कौन-से वाक्य में वर्तनी से संबंधित त्रुटि नहीं हैं?

(1) मोहन की आँखों से आंसू वह रहे थे।
(2) मोहन की आंखों से आँसू बह रहे थे।
(3) मोहन की आँखों से आँसू बह रहे थे। ✔
(4) मोहन की आंखों से आंसू बह रहे थे।

Q.188 निम्नलिखित में से किस एक वाक्य में वर्तनी की अशुद्धिहै?

(1) उसने अपने गुरु के चरणों में शीश नवाया।
(2) भक्त संत के दर्शन के लिए दर्शनाभिलाषी थे।
(3) सूरज का द्रश्य बहुत मनमोहक था। ✔
(4) जीवन में खुश रहना आवश्यक है।

Q.189 दिये गए वाक्य के रेखांकित शब्द का विलोम शब्द चुनिए – भारतीय साहित्य में कालिदास का स्थान उनके प्रख्यात काव्य-कौशल के कारण अद्वितीय है।

(1) कुख्यात ✔
(2) प्रसिद्ध
(3) विख्यात
(4) मशहूर

Q.190 दिये गये वाक्य के किस भाग में त्रुटि है?
वैज्ञानिकों में तथ्यों का तर्क -वितर्क सहित अवलोकन करने की छमता होनी चाहिए।

(1) अवलोकन करने की
(2) छमता होनी चाहिए। ✔
(3) वैज्ञानिकों में
(4) तथ्यों का तर्क-वितर्क सहित

QuickSarkari.com | WhatsApp Channel | Telegram: t.me/quick_sarkari

Q.191

दिए गए गद्यांश को पढ़कर नीचे लिखे प्रश्नों के उत्तर दीजिए ।
राष्ट्र निर्माण की प्रक्रिया में युवाओं की भूमिका अत्यंत महत्त्वपूर्ण मानी जाती है, क्योंकि युवा वर्ग ऊर्जा, उत्साह, सृजनात्मकता और सकारात्मक परिवर्तन की भावना से परिपूर्ण होता है। उच्च शिक्षा, वैज्ञानिक सोच और तकनीकी दक्षता के माध्यम से युवा न केवल अपनी व्यक्तिगत उन्नति करते हैं, बल्कि समाज को भी प्रगतिशील दिशा प्रदान करते हैं। लोकतांत्रिक मूल्यों की रक्षा, सामाजिक कुरीतियों का उन्मूलन, पर्यावरण संरक्षण और आर्थिक विकास जैसे क्षेत्रों में युवाओं की सक्रिय भागीदारी राष्ट्र को सशक्त बनाती है। आज के समय में डिजिटल नवाचार, स्टार्ट-अप संस्कृति और सामाजिक अभियानों में युवाओं की बढ़ती उपस्थिति उनके नेतृत्व कौशल और जिम्मेदारी के प्रति सजगता को दर्शाती है। यदि युवा अपने कौशल और नैतिक मूल्यों का समुचित उपयोग करें, तो वे राष्ट्र को न केवल वर्तमान चुनौतियों से उबार सकते हैं, बल्कि भविष्य को भी अधिक स्थिर और समृद्ध बना सकते हैं। इस प्रकार, राष्ट्र-निर्माण की सतत प्रक्रिया में युवा एक मजबूत आधार-स्तंभ के रूप में उभरते हैं।

उपर्युक्त गद्यांश का उचित शीर्षक क्या है?

(1) राष्ट्र निर्माण में युवाओं का नियमन
(2) राष्ट्र निर्माण में युवाओं की उदासीनता
(3) राष्ट्र निर्माण में युवाओं की निष्क्रियता
(4) राष्ट्र निर्माण में युवाओं की भूमिका ✔

Q.192

दिए गए गद्यांश को पढ़कर नीचे लिखे प्रश्नों के उत्तर दीजिए ।
राष्ट्र निर्माण की प्रक्रिया में युवाओं की भूमिका अत्यंत महत्त्वपूर्ण मानी जाती है, क्योंकि युवा वर्ग ऊर्जा, उत्साह, सृजनात्मकता और सकारात्मक परिवर्तन की भावना से परिपूर्ण होता है। उच्च शिक्षा, वैज्ञानिक सोच और तकनीकी दक्षता के माध्यम से युवा न केवल अपनी व्यक्तिगत उन्नति करते हैं, बल्कि समाज को भी प्रगतिशील दिशा प्रदान करते हैं। लोकतांत्रिक मूल्यों की रक्षा, सामाजिक कुरीतियों का उन्मूलन, पर्यावरण संरक्षण और आर्थिक विकास जैसे क्षेत्रों में युवाओं की सक्रिय भागीदारी राष्ट्र को सशक्त बनाती है। आज के समय में डिजिटल नवाचार, स्टार्ट-अप संस्कृति और सामाजिक अभियानों में युवाओं की बढ़ती उपस्थिति उनके नेतृत्व कौशल और जिम्मेदारी के प्रति सजगता को दर्शाती है। यदि युवा अपने कौशल और नैतिक मूल्यों का समुचित उपयोग करें, तो वे राष्ट्र को न केवल वर्तमान चुनौतियों से उबार सकते हैं, बल्कि भविष्य को भी अधिक स्थिर और समृद्ध बना सकते हैं। इस प्रकार, राष्ट्र-निर्माण की सतत प्रक्रिया में युवा एक मजबूत आधार-स्तंभ के रूप में उभरते हैं।

किस क्षेत्र में युवाओं की सक्रिय भागीदारी राष्ट्र को सशक्त बनाने में बाधक है?

(1) सांप्रदायिक आंदोलन ✔
(2) लोकतांत्रिक मूल्यों की रक्षा
(3) सामाजिक कुरीतियों का उन्मूलन
(4) पर्यावरण संरक्षण और आर्थिक विकास

Q.193

दिए गए गद्यांश को पढ़कर नीचे लिखे प्रश्नों के उत्तर दीजिए ।
राष्ट्र निर्माण की प्रक्रिया में युवाओं की भूमिका अत्यंत महत्त्वपूर्ण मानी जाती है, क्योंकि युवा वर्ग ऊर्जा, उत्साह, सृजनात्मकता और सकारात्मक परिवर्तन की भावना से परिपूर्ण होता है। उच्च शिक्षा, वैज्ञानिक सोच और तकनीकी दक्षता के माध्यम से युवा न केवल अपनी व्यक्तिगत उन्नति करते हैं, बल्कि समाज को भी प्रगतिशील दिशा प्रदान करते हैं। लोकतांत्रिक मूल्यों की रक्षा, सामाजिक कुरीतियों का उन्मूलन, पर्यावरण संरक्षण और आर्थिक विकास जैसे क्षेत्रों में युवाओं की सक्रिय भागीदारी राष्ट्र को सशक्त बनाती है। आज के समय में डिजिटल नवाचार, स्टार्ट-अप संस्कृति और सामाजिक अभियानों में युवाओं की बढ़ती उपस्थिति उनके नेतृत्व कौशल और जिम्मेदारी के प्रति सजगता को दर्शाती है। यदि युवा अपने कौशल और नैतिक मूल्यों का समुचित उपयोग करें, तो वे राष्ट्र को न केवल वर्तमान चुनौतियों से उबार सकते हैं, बल्कि भविष्य को भी अधिक स्थिर और समृद्ध बना सकते हैं। इस प्रकार, राष्ट्र-निर्माण की सतत प्रक्रिया में युवा एक मजबूत आधार-स्तंभ के रूप में उभरते हैं।

निम्नलिखित में से कौन-सा कथन उपर्युक्त गद्यांश के अनुसार सही नहीं है?

(1) युवा वर्ग ऊर्जा, उत्साह, सृजनात्मकता और सकारात्मक परिवर्तन की भावना से परिपूर्ण होता है।
(2) युवा वर्ग अपने कौशल और नैतिक मूल्यों का समुचित उपयोग करके राष्ट्र को वर्तमान चुनौतियों से उबार सकता है।
(3) वर्तमान में डिजिटल नवाचार, स्टार्ट-अप, संस्कृति और सामाजिक अभियानों में युवाओं की उपस्थिति कम हो रही है। ✔
(4) युवा वर्ग उच्च शिक्षा, वैज्ञानिक सोच और तकनीकी दक्षता के माध्यम से समाज को प्रगतिशील दिशा प्रदान करते हैं।

Q.194

दिए गए गद्यांश को पढ़कर नीचे लिखे प्रश्नों के उत्तर दीजिए ।
राष्ट्र निर्माण की प्रक्रिया में युवाओं की भूमिका अत्यंत महत्त्वपूर्ण मानी जाती है, क्योंकि युवा वर्ग ऊर्जा, उत्साह, सृजनात्मकता और सकारात्मक परिवर्तन की भावना से परिपूर्ण होता है। उच्च शिक्षा, वैज्ञानिक सोच और तकनीकी दक्षता के माध्यम से युवा न केवल अपनी व्यक्तिगत उन्नति करते हैं, बल्कि समाज को भी प्रगतिशील दिशा प्रदान करते हैं। लोकतांत्रिक मूल्यों की रक्षा, सामाजिक कुरीतियों का उन्मूलन, पर्यावरण संरक्षण और आर्थिक विकास जैसे क्षेत्रों में युवाओं की सक्रिय भागीदारी राष्ट्र को सशक्त बनाती है। आज के समय में डिजिटल नवाचार, स्टार्ट-अप संस्कृति और सामाजिक अभियानों में युवाओं की बढ़ती उपस्थिति उनके नेतृत्व कौशल और जिम्मेदारी के प्रति सजगता को दर्शाती है। यदि युवा अपने कौशल और नैतिक मूल्यों का समुचित उपयोग करें, तो वे राष्ट्र को न केवल वर्तमान चुनौतियों से उबार सकते हैं, बल्कि भविष्य को भी अधिक स्थिर और समृद्ध बना सकते हैं। इस प्रकार, राष्ट्र-निर्माण की सतत प्रक्रिया में युवा एक मजबूत आधार-स्तंभ के रूप में उभरते हैं।

'स्टार्ट-अप','डिजिटल' किस प्रकार के शब्द हैं?

(1) तत्सम
(2) तद्भव
(3) विदेशज ✔
(4) देशज

Q.195

दिए गए गद्यांश को पढ़कर नीचे लिखे प्रश्नों के उत्तर दीजिए ।
राष्ट्र निर्माण की प्रक्रिया में युवाओं की भूमिका अत्यंत महत्त्वपूर्ण मानी जाती है, क्योंकि युवा वर्ग ऊर्जा, उत्साह, सृजनात्मकता और सकारात्मक परिवर्तन की भावना से परिपूर्ण होता है। उच्च शिक्षा, वैज्ञानिक सोच और तकनीकी दक्षता के माध्यम से युवा न केवल अपनी व्यक्तिगत उन्नति करते हैं, बल्कि समाज को भी प्रगतिशील दिशा प्रदान करते हैं। लोकतांत्रिक मूल्यों की रक्षा, सामाजिक कुरीतियों का उन्मूलन, पर्यावरण संरक्षण और आर्थिक विकास जैसे क्षेत्रों में युवाओं की सक्रिय भागीदारी राष्ट्र को सशक्त बनाती है। आज के समय में डिजिटल नवाचार, स्टार्ट-अप संस्कृति और सामाजिक अभियानों में युवाओं की बढ़ती उपस्थिति उनके नेतृत्व कौशल और जिम्मेदारी के प्रति सजगता को दर्शाती है। यदि युवा अपने कौशल और नैतिक मूल्यों का समुचित उपयोग करें, तो वे राष्ट्र को न केवल वर्तमान चुनौतियों से उबार सकते हैं, बल्कि भविष्य को भी अधिक स्थिर और समृद्ध बना सकते हैं। इस प्रकार, राष्ट्र-निर्माण की सतत प्रक्रिया में युवा एक मजबूत आधार-स्तंभ के रूप में उभरते हैं।

'उन्मूलन' का विलोम शब्द क्या है?

(1) कृपण
(2) **रोपण ✔**
(3) आगर
(4) आपण

Q.196

निम्नलिखित गद्यांश के आधार पर प्रश्नों के उत्तर दें - प्रकृति ने संसार के सभी जीव-जंतुओं को पनपने एवं बढ़ने के अवसर प्रदान किए हैं। सभी प्राणियों में श्रेष्ठ होने के कारण मानव ने अनुकूल-प्रतिकूल, सभी परिस्थितियों में अपनी बुद्धि और विवेक का प्रयोग कर स्वयं को स्वस्थ बनाए रखने में सफलता प्राप्त की है। विश्व की सभी सभ्यता संस्कृतियों में न केवल स्वास्थ्य रक्षा को श्रेय दिया है, अपितु स्वस्थ्य रहने की तरह-तरह की विधियों का बखान भी किया है। समय पर सोना और सवेरे जगना मानव को स्वस्थ, सम्पन्न और बुद्धिमान बनाता है आज की भागदौड़ भरी जिंदगी में मनुष्य के पास फुर्सत के दो पल भी नसीब नहीं है। घर से दफ्तर, दफ्तर से घर, तो कभी घर ही दफ्तर बन जाता है यानी इंसान के कार्यों की कोई सीमा नहीं है। वह हमेशा स्वयं को व्यस्त रखता है। इस व्यस्तता केकारण आज मानव शरीर तनाव, थकान बीमारी आदि का घर बनता जा रहा है। आज उसने हर प्रकार की सुख-सुविधाएं तो अर्जित कर ली हैं, किन्तु उसके सामने शारीरिक एवं मानसिक तौर पर स्वस्थ रहने की चुनौती आ खड़ी हुई है।

गद्यांश का वास्तविक जीवन से क्या संबंध है?

(1) धन अर्जन से
(2) **स्वास्थ्य और व्यायाम से ✔**
(3) मानव की सुख-सुविधाओं से
(4) मनुष्य के संघर्ष से

Q.197

निम्नलिखित गद्यांश के आधार पर प्रश्नों के उत्तर दें - प्रकृति ने संसार के सभी जीव-जंतुओं को पनपने एवं बढ़ने के अवसर प्रदान किए हैं। सभी प्राणियों में श्रेष्ठ होने के कारण मानव ने अनुकूल-प्रतिकूल, सभी परिस्थितियों में अपनी बुद्धि और विवेक का प्रयोग कर स्वयं को स्वस्थ बनाए रखने में सफलता प्राप्त की है। विश्व की सभी सभ्यता संस्कृतियों में न केवल स्वास्थ्य रक्षा को श्रेय दिया है, अपितु स्वस्थ्य रहने की तरह-तरह की विधियों का बखान भी किया है। समय पर सोना और सवेरे जगना मानव को स्वस्थ, सम्पन्न और बुद्धिमान बनाता है आज की भागदौड़ भरी जिंदगी में मनुष्य के पास फुर्सत के दो पल भी नसीब नहीं है। घर से दफ्तर, दफ्तर से घर, तो कभी घर ही दफ्तर बन जाता है यानी इंसान के कार्यों की कोई सीमा नहीं है। वह हमेशा स्वयं को व्यस्त रखता है। इस व्यस्तता केकारण आज मानव शरीर तनाव, थकान बीमारी आदि का घर बनता जा रहा है। आज उसने हर प्रकार की सुख-सुविधाएं तो अर्जित कर ली हैं, किन्तु उसके सामने शारीरिक एवं मानसिक तौर पर स्वस्थ रहने की चुनौती आ खड़ी हुई है।

मनुष्य को आनंद कब मिलता है?

(1) अधिक धन सम्पन्न हो।

(2) शारीरिक और मानसिक रूप से स्वस्थ हो। ✔

(3) जब सफलता प्राप्त कर ली हो।

(4) जब ऐशो-आराम की सभी वस्तुएं हों।

Q.198

निम्नलिखित गद्यांश के आधार पर प्रश्नों के उत्तर दें - प्रकृति ने संसार के सभी जीव-जंतुओं को पनपने एवं बढ़ने के अवसर प्रदान किए हैं। सभी प्राणियों में श्रेष्ठ होने के कारण मानव ने अनुकूल-प्रतिकूल, सभी परिस्थितियों में अपनी बुद्धि और विवेक का प्रयोग कर स्वयं को स्वस्थ बनाए रखने में सफलता प्राप्त की है। विश्व की सभी सभ्यता संस्कृतियों में न केवल स्वास्थ्य रक्षा को श्रेय दिया है, अपितु स्वस्थ्य रहने की तरह-तरह की विधियों का बखान भी किया है। समय पर सोना और सवेरे जगना मानव को स्वस्थ, सम्पन्न और बुद्धिमान बनाता है आज की भागदौड़ भरी जिंदगी में मनुष्य के पास फुर्सत के दो पल भी नसीब नहीं है। घर से दफ्तर, दफ्तर से घर, तो कभी घर ही दफ्तर बन जाता है यानी इंसान के कार्यों की कोई सीमा नहीं है। वह हमेशा स्वयं को व्यस्त रखता है। इस व्यस्तता केकारण आज मानव शरीर तनाव, थकान बीमारी आदि का घर बनता जा रहा है। आज उसने हर प्रकार की सुख-सुविधाएं तो अर्जित कर ली हैं, किन्तु उसके सामने शारीरिक एवं मानसिक तौर पर स्वस्थ रहने की चुनौती आ खड़ी हुई है।

आज की भाग दौड़ भरी जिंदगी में मनुष्य के जीवन पर क्या असर पड़ा है?

(1) भाग-दौड़ भरी जिंदगी से मनुष्य को मानसिक शांति प्राप्त हो गई है।

(2) इंसान ने दफ्तर को ही घर बना लिया है।

(3) मनुष्य ने अधिक धन अर्जित कर लिया है।

(4) मानव तनाव, थकान, बीमारी इत्यादि का घर बनता जा रहा है। ✔

Q.199

निम्नलिखित गद्यांश के आधार पर प्रश्नों के उत्तर दें - प्रकृति ने संसार के सभी जीव-जंतुओं को पनपने एवं बढ़ने के अवसर प्रदान किए हैं। सभी प्राणियों में श्रेष्ठ होने के कारण मानव ने अनुकूल-प्रतिकूल, सभी परिस्थितियों में अपनी बुद्धि और विवेक का प्रयोग कर स्वयं को स्वस्थ बनाए रखने में सफलता प्राप्त की है। विश्व की सभी सभ्यता संस्कृतियों में न केवल स्वास्थ्य रक्षा को श्रेय दिया है, अपितु स्वस्थ्य रहने की तरह-तरह की विधियों का बखान भी किया है। समय पर सोना और सवेरे जगना मानव को स्वस्थ, सम्पन्न और बुद्धिमान बनाता है आज की भागदौड़ भरी जिंदगी में मनुष्य के पास फुर्सत के दो पल भी नसीब नहीं है। घर से दफ्तर, दफ्तर से घर, तो कभी घर ही दफ्तर बन जाता है यानी इंसान के कार्यों की कोई सीमा नहीं है। वह हमेशा स्वयं को व्यस्त रखता है। इस व्यस्तता केकारण आज मानव शरीर तनाव, थकान बीमारी आदि का घर बनता जा रहा है। आज उसने हर प्रकार की सुख-सुविधाएं तो अर्जित कर ली हैं, किन्तु उसके सामने शारीरिक एवं मानसिक तौर पर स्वस्थ रहने की चुनौती आ खड़ी हुई है।

गद्यांश का भाव बताएं -

(1) सुख-सुविधाएं अति आवश्यक हैं।

(2) मानव के लिए स्वास्थ्य अति आवश्यक है। ✔

(3) मनुष्य के लिए धन आवश्यक है।

(4) भाग-दौड़ भरी जिंदगी में मानव खुश है।

Q.200

निम्नलिखित गद्यांश के आधार पर प्रश्नों के उत्तर दें - प्रकृति ने संसार के सभी जीव-जंतुओं को पनपने एवं बढ़ने के अवसर प्रदान किए हैं। सभी प्राणियों में श्रेष्ठ होने के कारण मानव ने अनुकूल-प्रतिकूल, सभी परिस्थितियों में अपनी बुद्धि और विवेक का प्रयोग कर स्वयं को स्वस्थ बनाए रखने में सफलता प्राप्त की है। विश्व की सभी सभ्यता संस्कृतियों में न केवल स्वास्थ्य रक्षा को श्रेय दिया है, अपितु स्वस्थ्य रहने की तरह-तरह की विधियों का बखान भी किया है। समय पर सोना और सवेरे जगना मानव को स्वस्थ, सम्पन्न और बुद्धिमान बनाता है आज की भागदौड़ भरी जिंदगी में मनुष्य के पास फुर्सत के दो पल भी नसीब नहीं है। घर से दफ्तर, दफ्तर से घर, तो कभी घर ही दफ्तर बन जाता है यानी इंसान के कार्यों की कोई सीमा नहीं है। वह हमेशा स्वयं को व्यस्त रखता है। इस व्यस्तता केकारण आज मानव शरीर तनाव, थकान बीमारी आदि का घर बनता जा रहा है। आज उसने हर प्रकार की सुख-सुविधाएं तो अर्जित कर ली हैं, किन्तु उसके सामने शारीरिक एवं मानसिक तौर पर स्वस्थ रहने की चुनौती आ खड़ी हुई है।

गद्यांश का निष्कर्ष बताएं -

(1) अपनी व्यस्तता के कारण ही मनुष्य प्रसन्न है।

(2) शारीरिक और मानसिक रूप से स्वस्थ्य रहना अति आवश्यक है। ✔

(3) मनुष्य अपनी भाग-दौड़ भरी जिंदगी में खुश है।

(4) विश्व की सभ्यता संस्कृति ने केवल धन को महत्त्व दिया है।

"

Answer Key / उत्तर कुंजी

1 1	**2** 3	**3** 2	**4** 4	**5** 4	**6** 1	**7** 1	**8** 2	**9** 3	**10** 2	**11** 4	**12** 1	**13** 2	**14** 1	**15** 2
16 4	**17** 4	**18** 3	**19** 4	**20** 3	**21** 3	**22** 3	**23** 4	**24** 4	**25** 4	**26** 2	**27** 4	**28** 4	**29** 3	**30** 2
31 2	**32** 4	**33** 4	**34** 4	**35** 1	**36** 3	**37** 3	**38** 1	**39** 4	**40** 1	**41** 4	**42** 4	**43** 4	**44** 2	**45** 4
46 2	**47** 2	**48** 3	**49** 2	**50** 4	**51** 3	**52** 2	**53** 2	**54** 4	**55** 2	**56** 2	**57** 3	**58** 3	**59** 2	**60** 1
61 2	**62** 2	**63** 4	**64** 3	**65** 4	**66** 2	**67** 2	**68** 3	**69** 1	**70** 2	**71** 2	**72** 2	**73** 3	**74** 4	**75** 4
76 1	**77** 4	**78** 1	**79** 2	**80** 2	**81** 4	**82** 4	**83** 1	**84** 3	**85** 3	**86** 1	**87** 3	**88** 2	**89** 1	**90** 2

91 3	**92** 4	**93** 3	**94** 2	**95** 1	**96** 2	**97** 1	**98** 4	**99** 4	**100** 4	**101** 4	**102** 4	**103** 4	**104** 1	**105** 3
106 2	**107** 2	**108** 4	**109** 4	**110** 1	**111** 1	**112** 4	**113** 2	**114** 1	**115** 1	**116** 3	**117** 4	**118** 3	**119** 4	**120** 2
121 4	**122** 3	**123** 2	**124** 1	**125** 4	**126** 1	**127** 2	**128** 2	**129** 1	**130** 1	**131** 3	**132** 3	**133** 4	**134** 2	**135** 2
136 1	**137** 4	**138** 1	**139** 2	**140** 1	**141** 2	**142** 2	**143** 1	**144** 1	**145** 1	**146** 1	**147** 4	**148** 2	**149** 3	**150** 3
151 3	**152** 1	**153** 4	**154** 3	**155** 1	**156** 4	**157** 2	**158** 2	**159** 2	**160** 3	**161** 4	**162** 4	**163** 2	**164** 2	**165** 1
166 1	**167** 2	**168** 1	**169** 2	**170** 2	**171** 4	**172** 4	**173** 4	**174** 2	**175** 3	**176** 2	**177** 4	**178** 3	**179** 4	**180** 2
181 3	**182** 1	**183** 3	**184** 3	**185** 3	**186** 1	**187** 3	**188** 3	**189** 1	**190** 2	**191** 4	**192** 1	**193** 3	**194** 3	**195** 2
196 2	**197** 2	**198** 4	**199** 2	**200** 2										

QuickSarkari

GOVT. OF NCT OF DELHI
Delhi Subordinate Services Selection Board
FC-18, Institutional Area, Karkardooma, Delhi – 110092.
www.dsssb.delhigovt.nic.in

Participant ID	[redacted]
Participant Name	[redacted]
Test Center Name	Aadarsh Pariksha Kendra CENTER B - Gate No 2 - Noida Sector 64
Test Date	22/02/2026
Test Time	1:00 PM - 3:00 PM
Subject	Bailiff

Section : General intelligence and Reasoning Ability

Q.1 निम्नलिखित अक्षर श्रृंखला का संदर्भ लीजिए तथा नीचे दिए गए प्रश्न का उत्तर दीजिए। गिनती केवल बाएं से दाएं की जानी है।

(बाएं) J S A E P L A M I S R E N O T Y Z U Q A G H (दाएं)

ऐसे कितने व्यंजन हैं, जिनमें से प्रत्येक के ठीक पहले एक स्वर और ठीक बाद में भी एक स्वर है?

Ans
✔ 1. तीन
✘ 2. एक
✘ 3. चार
✘ 4. दो

Question ID : 4410097921 36
Option 1 ID : 4410093122545
Option 2 ID : 4410093122543
Option 3 ID : 4410093122546
Option 4 ID : 4410093122544

QuickSarkari.com | WhatsApp Channel | Telegram: t.me/quick_sarkari

Q.2 आदिश, बबली, चेतना, दीपिका, एकम, फिरोज और गीतिका में से प्रत्येक, सोमवार से शुरू होकर रविवार को समाप्त होने वाले एक ही सप्ताह के अलग-अलग दिन खेल खेलते हैं। फिरोज, मंगलवार को खेल खेलता है। फिरोज और गीतिका के बीच केवल तीन व्यक्ति खेल खेलते हैं। दीपिका, एकम से ठीक पहले खेलती है और चेतना, दीपिका से ठीक पहले खेलती है। बबली पहले दिन नहीं खेलती है। आदिश किस दिन खेल खेलता है?

Ans
✗ 1. बुधवार
✗ 2. रविवार
✓ 3. सोमवार
✗ 4. गुरुवार

Question ID : 4410091609205
Option 1 ID : 4410096355738
Option 2 ID : 4410096355736
Option 3 ID : 4410096355737
Option 4 ID : 4410096355739

Q.3 उत्तर की ओर अभिमुख होकर बैठे 82 विद्यार्थियों की एक पंक्ति में, काजल बाएं छोर से 19वें स्थान पर है। यदि राजेश, काजल के दाएं 7वें स्थान पर बैठा है, तो पंक्ति के दाएं छोर से राजेश का स्थान क्या है?

Ans
✗ 1. 58वां
✓ 2. 57वां
✗ 3. 56वां
✗ 4. 59वां

Question ID : 4410091609262
Option 1 ID : 4410096355966
Option 2 ID : 4410096355965
Option 3 ID : 4410096355964
Option 4 ID : 4410096355967

Q.4 निम्नलिखित अक्षर-प्रतीक शृंखला का संदर्भ लीजिए और दिए गए प्रश्न का उत्तर दीजिए। गिनती केवल बाएँ से दाएँ की जानी चाहिए।

(बाएँ) R E £ O Z @ £ £ C * N % £ E © € & Y T % * N (दाएँ)

ऐसे कितने अक्षर हैं जिनमें से प्रत्येक के ठीक पहले एक अक्षर है और ठीक बाद में एक प्रतीक है?

Ans
✗ 1. 4
✗ 2. 5
✗ 3. 2
✓ 4. 3

Question ID : 4410093790793
Option 1 ID : 4410093117172
Option 2 ID : 4410093117174
Option 3 ID : 4410093117173
Option 4 ID : 4410093117171

Q.5 निम्नलिखित अक्षर शृंखला का संदर्भ लीजिए और दिए गए प्रश्न का उत्तर दीजिए।

(बाएं) E R A G E L I K U F O M I N E B J V I Z (दाएं)

शृंखला के दाएं छोर से चौथे अक्षर और बाएं छोर से चौथे अक्षर के बीच अंग्रेजी वर्णमाला में कितने अक्षर हैं?

Ans
✗ 1. तीन
✗ 2. पाँच
✗ 3. चार
✓ 4. दो

Question ID : 4410097696 75
Option 1 ID : 4410093032695
Option 2 ID : 4410093032694
Option 3 ID : 4410093032696
Option 4 ID : 4410093032693

Q.6 एक निश्चित कूट भाषा में, 'LOIB' को '76' के रूप में कूटबद्ध किया जाता है और 'PSLX' को '142' के रूप में कूटबद्ध किया जाता है। दी गई कूट भाषा में 'YGAK' के लिए कूट क्या होगा?

Ans
✓ 1. 88
✗ 2. 73
✗ 3. 80
✗ 4. 94

Question ID : 4410097958 11
Option 1 ID : 4410093137246
Option 2 ID : 4410093137245
Option 3 ID : 4410093137244
Option 4 ID : 4410093137243

Q.7 E के दो पुत्र C और F हैं। H, F की माता है। D, C की पत्नी है और वह B की माता है। F, G का पति है और G, K की माता है। H का K से क्या संबंध है?

Ans
✓ 1. पिता की माता
✗ 2. बहन
✗ 3. माता की माता
✗ 4. माता

Question ID : 4410091612348
Option 1 ID : 4410096368235
Option 2 ID : 4410096368238
Option 3 ID : 4410096368236
Option 4 ID : 4410096368237

Q.8 शब्द 'COURTESY' के प्रत्येक स्वर को अंग्रेजी वर्णमाला में उसके ठीक बाद आने वाले अक्षर से बदल दिया जाता है और प्रत्येक व्यंजन को अंग्रेजी वर्णमाला में उसके बाद आने वाले दूसरे अक्षर से बदल दिया जाता है। इस प्रकार बने अक्षरों के नए समूह में कौन-सा अक्षर ठीक दो बार आएगा?

Ans
✗ 1. A
✓ 2. V
✗ 3. T
✗ 4. P

Question ID : 4410009789270
Option 1 ID : 44100931111079
Option 2 ID : 44100931111080
Option 3 ID : 44100931111081
Option 4 ID : 44100931111082

Q.9 M, N, O, P, Q और R एक गोल मेज के परितः केंद्र की ओर अभिमुख होकर बैठे हैं। O, M के दाईं ओर दूसरे स्थान पर बैठा है। P, M के ठीक बाईं ओर पड़ोस में बैठा है। N, R के बाईं ओर तीसरे स्थान पर बैठा है। Q, N के ठीक बाईं ओर पड़ोस में बैठा है। N के बाईं ओर से गिनने पर N और P के बीच कितने व्यक्ति बैठे हैं?

Ans
✗ 1. एक
✗ 2. दो
✓ 3. चार
✗ 4. तीन

Question ID : 4410091621996
Option 1 ID : 4410096406768
Option 2 ID : 4410096406770
Option 3 ID : 4410096406771
Option 4 ID : 4410096406769

Q.10 सात बक्से D, E, F, G, H, I और J एक के ऊपर एक रखे गए हैं, लेकिन जरूरी नहीं कि इसी क्रम में हों। F को सबसे निचले स्थान पर रखा गया है। F और J के बीच केवल एक बक्सा रखा गया है। H को J के ठीक ऊपर रखा गया है। H और E के बीच केवल दो बक्से रखे गए हैं। G को I के ठीक ऊपर रखा गया है। F के ठीक ऊपर कौन-सा बक्सा रखा गया है?

Ans
✗ 1.
G
✓ 2.
D
✗ 3.
H
✗ 4.
E

Question ID : 4410091623158
Option 1 ID : 4410096411355
Option 2 ID : 4410096411353
Option 3 ID : 4410096411352
Option 4 ID : 4410096411354

Q.11 निम्नलिखित अक्षर शृंखला का संदर्भ लीजिए और उसके बाद दिए गए प्रश्न का उत्तर दीजिए। गिनती केवल बाएँ से दाएँ की जानी है।

(बाएँ) L Q G K K R I T D U O S M P M C E W B W (दाएँ)

इस शृंखला में ऐसे कितने स्वर हैं जिनमें से प्रत्येक के ठीक पहले और ठीक बाद में व्यंजन है?

Ans
✗ 1. एक
✗ 2. चार
✗ 3. तीन
✓ 4. दो

Question ID : 4410097777356
Option 1 ID : 4410093063429
Option 2 ID : 4410093063430
Option 3 ID : 4410093063428
Option 4 ID : 4410093063427

Q.12 एक निश्चित कूट भाषा में, 'old is gold' को 'ab kl st' के रूप में और 'you are old' को 'mn st gh' के रूप में कूटबद्ध किया गया है। दी गई कूट भाषा में 'old' के लिए कूट क्या होगा? (सभी कूट दो-अक्षरों वाले कूट हैं।)

Ans
✓ 1. st
✗ 2. mn
✗ 3. kl
✗ 4. gh

Question ID : 4410091609267
Option 1 ID : 4410096355985
Option 2 ID : 4410096355986
Option 3 ID : 4410096355984
Option 4 ID : 4410096355987

QuickSarkari.com | WhatsApp Channel | Telegram: t.me/quick_sarkari

Q.13 निम्नलिखित अक्षर शृंखला का संदर्भ लीजिए और दिए गए प्रश्न का उत्तर दीजिए। गिनती केवल बाएँ से दाएँ की जानी चाहिए।

(बाएँ) V Q I G Y L Q A A O P I Q A H A E E P U C E (दाएँ)

ऐसे कितने व्यंजन हैं जिनमें से प्रत्येक के ठीक पहले एक स्वर है और ठीक बाद में भी एक स्वर है?

Ans
1. 4
2. 5
3. 6
4. 7

Question ID : 4410009780653
Option 1 ID : 4410093076617
Option 2 ID : 4410093076615
Option 3 ID : 4410093076616
Option 4 ID : 4410093076618

Q.14 निम्नलिखित शृंखला का संदर्भ लीजिए और दिए गए प्रश्न का उत्तर दीजिए।

(बाएं) D F F I U L C T A S E Y Q U E S T I O N M A D E W I T H R E C A A (दाएं)

यदि शृंखला से सभी व्यंजनों को हटा दिया जाए, तो दाएं से तीसरा अक्षर कौन-सा होगा?

Ans
1. E
2. A
3. O
4. U

Question ID : 4410009769825
Option 1 ID : 4410093033293
Option 2 ID : 4410093033294
Option 3 ID : 4410093033296
Option 4 ID : 4410093033295

QuickSarkari.com | WhatsApp Channel | Telegram: t.me/quick_sarkari

Q.15 D, E, F, G, H, I और J में से प्रत्येक की परीक्षा सोमवार से शुरू होकर रविवार को समाप्त होने वाले एक ही सप्ताह के अलग-अलग दिन है। F की परीक्षा गुरुवार को है। E और D के बीच केवल एक ही व्यक्ति की परीक्षा है। G की परीक्षा H के ठीक बाद लेकिन E से ठीक पहले है। J की परीक्षा I से ठीक पहले वाले दिन है। D की परीक्षा किस दिन है?

Ans
✗ 1. सोमवार
✓ 2. शुक्रवार
✗ 3. बुधवार
✗ 4. मंगलवार

Question ID : 44100916241l7
Option 1 ID : 4410096415043
Option 2 ID : 4410096415044
Option 3 ID : 4410096415046
Option 4 ID : 4410096415045

Q.16 A, B का पिता है। B, C की बहन है। C का विवाह D से हुआ है। A का D से क्या संबंध है?

Ans
✗ 1. माता
✗ 2. भाई
✗ 3. पुत्र
✓ 4. ससुर

Question ID : 44100916261 22
Option 1 ID : 4410096422896
Option 2 ID : 4410096422894
Option 3 ID : 4410096422895
Option 4 ID : 4410096422893

Q.17 निम्नलिखित शृंखला का संदर्भ लीजिए और दिए गए प्रश्न का उत्तर दीजिए।

(बाएं) H G F B V C M N U A H G F F D F D F F H G F I O U A E H G F H (दाएं)

यदि शृंखला से सभी व्यंजनों को हटा दिया जाएं. तो बाएं से तीसरा अक्षर कौन-सा होगा?

Ans
✗ 1. A
✗ 2. U
✗ 3. O
✓ 4. I

Question ID : 4410097698 34
Option 1 ID : 4410093033332
Option 2 ID : 4410093033331
Option 3 ID : 4410093033330
Option 4 ID : 4410093033329

Q.18 आठ लोग, अनमोल, बबली, चिंकी, देवेश, एकम, फातिमा, गर्व और हेमा - उत्तर की ओर अभिमुख होकर एक पंक्ति में बैठे हैं। एकम, हेमा के बाएं दूसरे स्थान पर बैठा है और एकम, अनमोल के दाएं तीसरे स्थान पर बैठा है। गर्व, हेमा के दाएं ठीक पड़ोस में बैठा है और गर्व, पंक्ति के किसी एक छोर पर बैठा है। बबली, देवेश के दाएं ठीक पड़ोस में बैठी है। चिंकी, पंक्ति के किसी भी छोर पर नहीं बैठी है। पंक्ति के बाएं छोर पर कौन बैठा है?

Ans
✗ 1. चिंकी
✗ 2. अनमोल
✓ 3. फातिमा
✗ 4. हेमा

Question ID : 4410091609154
Option 1 ID : 4410096355534
Option 2 ID : 4410096355533
Option 3 ID : 4410096355532
Option 4 ID : 4410096355535

Q.19 सात व्यक्ति F, G, H, Q, R, S और T उत्तर की ओर अभिमुख होकर एक सीधी पंक्ति में बैठे हैं। T, H के बाईं ओर ठीक पड़ोस में बैठा है। G के बाईं ओर केवल दो व्यक्ति बैठे हैं। G और Q के बीच केवल तीन व्यक्ति बैठे हैं। Q और F के बीच केवल एक व्यक्ति बैठा है। S, Q का निकटतम पड़ोसी नहीं है। R के दाईं ओर कितने व्यक्ति बैठे हैं?

Ans
✗ 1. तीन
✗ 2. दो
✗ 3. चार
✓ 4. एक

Question ID : 4410009788335
Option 1 ID : 4410093107340
Option 2 ID : 4410093107341
Option 3 ID : 4410093107339
Option 4 ID : 4410093107342

Q.20 सात लोग, अखिल, बबलू, चेतन, दीपक, एकता, फलक और गीतिका - उत्तर की ओर अभिमुख होकर एक पंक्ति में बैठे हैं। गीतिका, फलक के दाएं दूसरे स्थान पर बैठी है तथा फलक पंक्ति के किसी एक छोर पर बैठी है। चेतन, दीपक के बाएं ठीक पड़ोस में बैठा है। एकता, चेतन की निकटतम पड़ोसी है तथा अखिल के दाएं तीसरे स्थान पर बैठी है। दीपक और एकता के बीच कितने लोग बैठे हैं?

Ans
✗ 1. तीन
✗ 2. एक भी नहीं
✓ 3. एक
✗ 4. दो

Question ID : 4410091609122
Option 1 ID : 4410096355407
Option 2 ID : 4410096355404
Option 3 ID : 4410096355405
Option 4 ID : 4410096355406

QuickSarkari.com | WhatsApp Channel | Telegram: t.me/quick_sarkari

Section : General intelligence and Reasoning Ability1

Q.1 उस समुच्चय का चयन कीजिए जिसमें संख्याएं उसी प्रकार संबंधित हैं जिस प्रकार निम्नलिखित समुच्चयों की संख्याएं संबंधित हैं।

(नोटः गणितीय संक्रियाएं, संख्याओं को उनके घटक अंकों में तोड़े बिना, पूर्ण संख्याओं पर की जानी चाहिए। उदाहरण के लिए 13 को लीजिए - 13 पर गणितीय संक्रियाएं जैसे कि 13 को जोड़ना/घटाना/गुणा करना, आदि किया जा सकता है। 13 को 1 और 3 में तोड़ना और फिर 1 और 3 पर गणितीय संक्रियाएं करने की अनुमति नहीं है।)

(11, 120, 195)
(18, 323, 398)

Ans
✗ 1. (10, 100, 195)
✗ 2. (13, 158, 230)
✓ 3. (14, 195, 270)
✗ 4. (16, 245, 330)

Question ID : 4410096038 22
Option 1 ID : 4410092370408
Option 2 ID : 4410092370405
Option 3 ID : 4410092370407
Option 4 ID : 4410092370406

Q.2 संख्या 26578413 के प्रत्येक अंक को बाएं से दाएं आरोही क्रम में व्यवस्थित किया जाता है। इस प्रकार बनी नई संख्या में बाएं से चौथा अंक निम्नलिखित में से कौन-सा होगा?

Ans
✗ 1. 6
✗ 2. 5
✓ 3. 4
✗ 4. 3

Question ID : 4410091469140
Option 1 ID : 4410095804515
Option 2 ID : 4410095804514
Option 3 ID : 4410095804513
Option 4 ID : 4410095804512

QuickSarkari.com | WhatsApp Channel | Telegram: t.me/quick_sarkari

Q.3 एक निश्चित तर्क का अनुसरण करते हुए, 6 का संबंध 26 से है। समान तर्क का अनुसरण करते हुए, 9 का संबंध 38 से है। उसी तर्क का अनुसरण करने पर, 13 का संबंध निम्नलिखित में से किस विकल्प से है?

(नोटः गणितीय संक्रियाएं, संख्याओं को उनके घटक अंकों में तोड़े बिना, पूर्ण संख्याओं पर की जानी चाहिए। उदाहरण के लिए 13 को लीजिए - 13 पर गणितीय संक्रियाएं जैसे कि 13 को जोड़ना/घटाना/गुणा करना, आदि किया जा सकता है। 13 को 1 और 3 में तोड़ना और फिर 1 और 3 पर गणितीय संक्रियाएं करने की अनुमति नहीं है।)

Ans
✗ 1. 51
✗ 2. 47
✗ 3. 60
✓ 4. 54

Question ID : 4410095907776
Option 1 ID : 4410092318220
Option 2 ID : 4410092318219
Option 3 ID : 4410092318218
Option 4 ID : 4410092318217

Q.4 नीचे संख्याओं के दो समुच्चय दिए गए हैं। संख्याओं के प्रत्येक समुच्चय में, पहली संख्या पर एक निश्चित गणितीय संक्रिया के परिणामस्वरूप दूसरी संख्या प्राप्त होती है। इसी प्रकार, दूसरी संख्या पर एक निश्चित गणितीय संक्रिया के परिणामस्वरूप तीसरी संख्या प्राप्त होती है और यह क्रम इसी प्रकार आगे भी जारी रहता है। दिए गए विकल्पों में से कौन-सा विकल्प प्रश्न के समुच्चयों में अपनाई गई संक्रियाओं के समान समुच्चय का अनुसरण करता है?
(नोट - दो/तीन अंकीय संख्याओं को गणितीय संक्रिया के लिए अलग-अलग अंकों में तोड़ने की अनुमति नहीं है, जैसे कि, यदि 37 के बाद 10 है, तो संक्रिया 3+7 नहीं हो सकती है क्योंकि दो अंकीय संख्या को अलग-अलग अंकों में नहीं तोड़ा जा सकता है)
40 - 20 - 60 - 80 : 2 - 1 - 3 - 4

Ans
✗ 1. 4 - 1 - 5 - 10
✗ 2. 20 - 5 - 25 - 50
✗ 3. 5 - 3 - 8 - 13
✓ 4. 14 - 7 - 21 - 28

Question ID : 4410095885000
Option 1 ID : 4410092309127
Option 2 ID : 4410092309128
Option 3 ID : 4410092309126
Option 4 ID : 4410092309129

Quick Sarkari

Q.5 अंग्रेजी वर्णमाला क्रम के आधार पर, निम्नलिखित चार अक्षर-समूहों में से तीन एक निश्चित तरीके से समान हैं और इस प्रकार वे एक ग्रुप बनाते हैं। कौन-सा अक्षर-समूह, उस ग्रुप से संबंधित नहीं है? (नोटः असंगत अक्षर-समूह, उसमें व्यंजनों/स्वरों की संख्या या स्थिति पर आधारित नहीं है।)

Ans
✗ 1. EGI
✗ 2. DFH
✗ 3. ACE
✓ 4. IKL

Question ID : 4410009792408
Option 1 ID : 4410093123633
Option 2 ID : 4410093123632
Option 3 ID : 4410093123631
Option 4 ID : 4410093123634

Q.6 अंग्रेजी वर्णमाला क्रम के आधार पर, एक निश्चित तरीके से XMEQ का संबंध ZOGS से है। इसी प्रकार, LANX का संबंध NCPZ से है। समान तर्क का अनुसरण करने पर, TJCK का संबंध निम्नलिखित में से किस विकल्प से है?

Ans
✗ 1. WKEN
✓ 2. VLEM
✗ 3. WMDN
✗ 4. UMFO

Question ID : 4410009795791
Option 1 ID : 4410093137164
Option 2 ID : 4410093137165
Option 3 ID : 4410093137166
Option 4 ID : 4410093137163

Q.7 एक निश्चित तर्क का अनुसरण करते हुए, 12 का संबंध 3 से है। समान तर्क का अनुसरण करते हुए, 39 का संबंध 6 से है। उसी तर्क का अनुसरण करने पर, 52 का संबंध निम्नलिखित में से किस विकल्प से है?

(नोटः गणितीय संक्रियाएं, संख्याओं को उनके घटक अंकों में तोड़े बिना, पूर्ण संख्याओं पर की जानी चाहिए। उदाहरण के लिए 13 को लीजिए - 13 पर गणितीय संक्रियाएं जैसे कि 13 को जोड़ना/घटाना/गुणा करना, आदि किया जा सकता है। 13 को 1 और 3 में तोड़ना और फिर 1 और 3 पर गणितीय संक्रियाएं करने की अनुमति नहीं है।)

Ans
✗ 1. 4
✗ 2. 13
✗ 3. 15
✓ 4. 7

Question ID : 4410009591370
Option 1 ID : 4410092320593
Option 2 ID : 4410092320596
Option 3 ID : 4410092320595
Option 4 ID : 4410092320594

Q.8 यदि जल स्रोत को X-Y के अनुदिश रखा जाए, जैसा कि चित्र में दिखाया गया है, तो निम्नलिखित में से कौन-सा विकल्प दिए गए चित्र का जल प्रतिबिंब होगा?

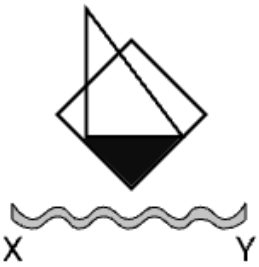

Ans

✗ 1. 

✗ 2. 

✗ 3. 

✓ 4. 

Question ID : 4410091471675
Option 1 ID : 4410095814591
Option 2 ID : 4410095814592
Option 3 ID : 4410095814593
Option 4 ID : 4410095814594

QuickSarkari.com | WhatsApp Channel | Telegram: t.me/quick_sarkari

Q.9 नीचे दिए गए दो त्रिकों के समान पैटर्न का अनुसरण करने वाले त्रिक का चयन कीजिए। दोनों त्रिक समान पैटर्न का अनुसरण करते हैं।

DF - IK - NP

PR - UW - ZB

Ans
1. IK - OP - TU
2. HI - LM - PQ
3. FH - KM - PR
4. BC - FG - JK

Question ID : 4410091494125
Option 1 ID : 4410095902123
Option 2 ID : 4410095902121
Option 3 ID : 4410095902120
Option 4 ID : 4410095902122

Q.10 यदि 'I' का अर्थ '+' है, 'J' का अर्थ '×' है, 'K' का अर्थ '÷' है और 'L' का अर्थ '-' है, तो निम्नांकित समीकरण में प्रश्न चिह्न '?' के स्थान पर क्या आएगा?

14 J 4 L (10 K 2) J 3 = ?

Ans
1. 37
2. 41
3. 59
4. 22

Question ID : 4410091494149
Option 1 ID : 4410095902218
Option 2 ID : 4410095902219
Option 3 ID : 4410095902217
Option 4 ID : 4410095902216

Q.11 यदि 'A' का अर्थ '÷' है, 'B' का अर्थ '×' है, 'C' का अर्थ '+' है और 'D' का अर्थ '-' है, तो निम्नलिखित समीकरण में प्रश्न-चिह्न (?) के स्थान पर क्या आएगा?

143 C 208 A 13 B 4 D 125 = ?

Ans
1. 84
2. 82
3. 87
4. 89

Question ID : 441009553540
Option 1 ID : 4410092169474
Option 2 ID : 4410092169477
Option 3 ID : 4410092169475
Option 4 ID : 4410092169476

QuickSarkari.com | WhatsApp Channel | Telegram: t.me/quick_sarkari

Q.12 एक निश्चित तरीके से, NX 15 का संबंध OU 6 से है। उसी प्रकार, UO 13 का संबंध VL 4 से है। समान तर्क का अनुसरण करते हुए, ON 11 का संबंध निम्नलिखित में से किससे है?

Ans
✗ 1. PL 4
✗ 2. OL 4
✗ 3. OK 2
✓ 4. PK 2

Question ID : 4410009775632
Option 1 ID : 4410093056532
Option 2 ID : 4410093056534
Option 3 ID : 4410093056533
Option 4 ID : 4410093056531

Q.13 अंग्रेजी वर्णमाला क्रम के आधार पर एक निश्चित तरीके से PMBV का संबंध TQFZ से है। उसी प्रकार, LAWS का संबंध PEAW से है। समान तर्क का अनुसरण करते हुए, TQEY का संबंध निम्नलिखित में से किससे है?

Ans
✗ 1. YWKD
✗ 2. ZUID
✗ 3. ZVJE
✓ 4. XUIC

Question ID : 4410009795783
Option 1 ID : 4410093137132
Option 2 ID : 4410093137133
Option 3 ID : 4410093137131
Option 4 ID : 4410093137134

Q.14 अंग्रेजी वर्णमाला क्रम के आधार पर, निम्नलिखित चार अक्षर-समूह युग्मों में से तीन एक निश्चित तरीके से एकसमान हैं और इस प्रकार वे एक ग्रुप बनाते हैं। कौन-सा अक्षर-समूह युग्म उस ग्रुप से संबंधित नहीं है?
(नोट: असंगत अक्षर-समूह युग्म, व्यंजनों/स्वरों की संख्या या उनकी स्थिति पर आधारित नहीं है।)

Ans
✗ 1. LP - IN
✗ 2. TF - QD
✗ 3. YG - VE
✓ 4. VC - SZ

Question ID : 4410009792038
Option 1 ID : 4410093122151
Option 2 ID : 4410093122153
Option 3 ID : 4410093122154
Option 4 ID : 4410093122152

QuickSarkari.com | WhatsApp Channel | Telegram: t.me/quick_sarkari

Q.15 नीचे संख्याओं के दो समुच्चय दिए गए हैं। संख्याओं के प्रत्येक समुच्चय में, पहली संख्या पर एक निश्चित गणितीय संक्रिया के परिणामस्वरूप दूसरी संख्या प्राप्त होती है। इसी प्रकार, दूसरी संख्या पर एक निश्चित गणितीय संक्रिया के परिणामस्वरूप तीसरी संख्या प्राप्त होती है और यह क्रम इसी प्रकार आगे भी जारी रहता है। दिए गए विकल्पों में से कौन-सा विकल्प प्रश्न के समुच्चयों में अपनाई गई संक्रियाओं के समान समुच्चय का अनुसरण करता है?
(नोट - दो/तीन अंकीय संख्याओं को गणितीय संक्रिया के लिए अलग-अलग अंकों में तोड़ने की अनुमति नहीं है, जैसे कि, यदि 37 के बाद 10 है, तो संक्रिया 3+7 नहीं हो सकती है क्योंकि दो अंकीय संख्या को अलग-अलग अंकों में नहीं तोड़ा जा सकता है)
10 - 20 - 40 - 80; 15 - 30 - 60 - 120

Ans
✔ 1. 18 - 36 - 72 - 144
✘ 2. 20 - 30 - 80 - 160
✘ 3. 25 - 50 - 100 - 150
✘ 4. 16 - 32 - 48 - 96

Question ID : 4410092588092
Option 1 ID : 4410092307496
Option 2 ID : 4410092307497
Option 3 ID : 4410092307494
Option 4 ID : 4410092307495

Q.16 अंग्रेजी वर्णमाला क्रम के आधार पर दी गई श्रृंखला में ? के स्थान पर क्या आना चाहिए?
GJM PSV YBE HKN ?

Ans
✘ 1. RTW
✘ 2. QRS
✔ 3. QTW
✘ 4. RST

Question ID : 4410091492192
Option 1 ID : 4410095894483
Option 2 ID : 4410095894484
Option 3 ID : 4410095894482
Option 4 ID : 4410095894481

Q.17 अंग्रेजी वर्णमाला क्रम के आधार पर दी गई श्रृंखला में प्रश्न-चिह्न (?) के स्थान पर क्या आना चाहिए?
WXY ZAB CDE FGH ?

Ans
✘ 1. IJL
✘ 2. JKL
✔ 3. IJK
✘ 4. KLM

Question ID : 4410091492170
Option 1 ID : 4410095894396
Option 2 ID : 4410095894395
Option 3 ID : 4410095894394
Option 4 ID : 4410095894393

QuickSarkari.com | WhatsApp Channel | Telegram: t.me/quick_sarkari

Q.18 अंग्रेजी वर्णमाला क्रम के आधार पर, निम्नलिखित चार अक्षर-समूहों में से तीन एक निश्चित तरीके से एकसमान हैं और इस प्रकार वे एक ग्रुप बनाते हैं। कौन-सा अक्षर-समूह उस ग्रुप से संबंधित नहीं है? (नोट: असंगत अक्षर-समूह, उसमें व्यंजनों/स्वरों की संख्या या उनकी स्थिति पर आधारित नहीं है।)

Ans
✔ 1. NMP
✘ 2. LJG
✘ 3. JHE
✘ 4. PNK

Question ID : 4410009788488
Option 1 ID : 4410093107952
Option 2 ID : 4410093107951
Option 3 ID : 4410093107953
Option 4 ID : 4410093107954

Q.19 यदि '+' और '−' को परपर बदल दिया जाए तथा '×' और '÷' को परस्पर बदल दिया जाए, तो नीचे दिए गए समीकरण में '?' के स्थान पर क्या आएगा?
72 + 25 × 5 − 13 ÷ 2 = ?

Ans
✘ 1. 76
✘ 2. 81
✘ 3. 63
✔ 4. 93

Question ID : 4410091494196
Option 1 ID : 4410095902403
Option 2 ID : 4410095902402
Option 3 ID : 4410095902400
Option 4 ID : 4410095902401

QuickSarkari.com | WhatsApp Channel | Telegram: t.me/quick_sarkari

Q.20 नीचे दिखाए गए चित्र के अनुसार, जब दर्पण को 'PQ' पर रखा जाता है, तो दिए गए संयोजन के सही दर्पण प्रतिबिंब का चयन कीजिए।



Ans
✔ 1. 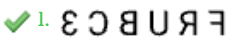
✘ 2. 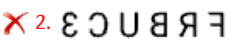
✘ 3. 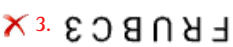
✘ 4. 

Question ID : 4410091471727
Option 1 ID : 4410095814797
Option 2 ID : 4410095814798
Option 3 ID : 4410095814795
Option 4 ID : 4410095814796

Section : General Awareness

Q.1 उपभोक्ता आय में कमी का बाजार संतुलन पर क्या प्रभाव पड़ता है?

Ans
✘ 1. साम्य कीमत में वृद्धि और साम्य मात्रा में कमी
✘ 2. साम्य कीमत और मात्रा दोनों में वृद्धि
✘ 3. साम्य कीमत में कमी और साम्य मात्रा में वृद्धि
✔ 4. साम्य कीमत और मात्रा दोनों में कमी

Question ID : 441009626913
Option 1 ID : 4410092461804
Option 2 ID : 4410092461806
Option 3 ID : 4410092461807
Option 4 ID : 4410092461805

QuickSarkari.com | WhatsApp Channel | Telegram: t.me/quick_sarkari

Q.2 उन्नीसवीं सदी के भारत में अलीगढ़ आंदोलन से संबंधित प्रमुख लीडर कौन थे?

Ans
✗ 1. ज़ाकिर नाइक
✗ 2. मोहम्मद अली जिन्ना
✗ 3. मौलाना अबुल कलाम आजाद
✓ 4. सर सैयद अहमद खान

Question ID : 4410091550083
Option 1 ID : 4410096135526
Option 2 ID : 4410096135525
Option 3 ID : 4410096135524
Option 4 ID : 4410096135523

Q.3 वायुमंडलीय परिसंचरण में, दाबांतर के कारण पवन सामान्यतः किस दिशा में चलती हैं?

Ans
✗ 1. समुद्री क्षेत्रों से केवल निकटवर्ती भूमि की ओर
✗ 2. निम्न दाब वाले क्षेत्रों से उच्च दाब वाले क्षेत्रों की ओर
✗ 3. भूमि क्षेत्रों से केवल निकटवर्ती समुद्र की ओर
✓ 4. उच्च दाब वाले क्षेत्रों से निम्न दाब वाले क्षेत्रों की ओर

Question ID : 4410091550609
Option 1 ID : 4410096128836
Option 2 ID : 4410096128838
Option 3 ID : 4410096128837
Option 4 ID : 4410096128835

Q.4 निम्नलिखित में से कौन-सा मौद्रिक नीति का प्राथमिक साधन है जिसका उपयोग भारतीय रिजर्व बैंक द्वारा मुद्रा आपूर्ति को नियंत्रित करने के लिए किया जाता है?

Ans
✗ 1. प्रत्यक्ष विदेशी निवेश
✓ 2. बैंक दर
✗ 3. राजकोषीय घाटा
✗ 4. सार्वजनिक ऋण

Question ID : 4410091542278
Option 1 ID : 4410096092217
Option 2 ID : 4410096092215
Option 3 ID : 4410096092216
Option 4 ID : 4410096092218

QuickSarkari.com | WhatsApp Channel | Telegram: t.me/quick_sarkari

Q.5 **गणनात्मक उपयोगिता विश्लेषण, उपयोगिता के मापन के संबंध में, किस मूलभूत अभिधारणा पर आधारित है?**

Ans
✗ 1. उपयोगिता को केवल वरीयता के आधार पर ही श्रेणीबद्ध किया जा सकता है
✗ 2. उपयोगिता सभी व्यक्तियों के लिए स्थिर रहती है
✗ 3. उपयोगिता आय और कीमतों से स्वतंत्र होती है
✓ 4. उपयोगिता को संख्यात्मक इकाइयों में मापा जा सकता है

Question ID : 4410091542881
Option 1 ID : 4410096094579
Option 2 ID : 4410096094582
Option 3 ID : 4410096094581
Option 4 ID : 4410096094580

Q.6 **मांग और आपूर्ति दोनों में कमी बाजार संतुलन को किस प्रकार प्रभावित करती है?**

Ans
✗ 1. कीमत में कमी होती है, मात्रा अपरिवर्तित रहती है
✓ 2. कीमत अपरिवर्तित रहती है, मात्रा में कमी होती है
✗ 3. कीमत में वृद्धि होती है, मात्रा अपरिवर्तित रहती है
✗ 4. कीमत में कमी होती है, मात्रा में वृद्धि होती है

Question ID : 4410009627483
Option 1 ID : 4410092464085
Option 2 ID : 4410092464086
Option 3 ID : 4410092464087
Option 4 ID : 4410092464084

Q.7 **लखनऊ में 1857 के विद्रोह के प्रमुख व्यक्ति के रूप में कौन उभरा?**

Ans
✗ 1. रानी लक्ष्मीबाई
✓ 2. बेगम हजरत महल
✗ 3. तांत्या टोपे
✗ 4. कुंवर सिंह

Question ID : 4410091550010
Option 1 ID : 4410096136067
Option 2 ID : 4410096136069
Option 3 ID : 4410096136068
Option 4 ID : 4410096136070

QuickSarkari.com | WhatsApp Channel | Telegram: t.me/quick_sarkari

Q.8 भारतीय संविधान के अनुच्छेद 53(2) के अनुसार, संघ के रक्षा बलों की सर्वोच्च कमान किसके पास निहित है?

Ans
✗ 1. चीफ ऑफ डिफेंस स्टाफ
✗ 2. मंत्रिपरिषद
✓ 3. भारत के राष्ट्रपति
✗ 4. भारत के प्रधानमंत्री

Question ID : 4410091537142
Option 1 ID : 4410096071859
Option 2 ID : 4410096071860
Option 3 ID : 4410096071862
Option 4 ID : 4410096071861

Q.9 भारतीय संविधान का कौन-सा अनुच्छेद, राज्य सरकार के नाम पर जारी किए गए आदेशों और लिखतों के प्रमाणीकरण से संबंधित है?

Ans
✗ 1. अनुच्छेद 163
✓ 2. अनुच्छेद 166
✗ 3. अनुच्छेद 168
✗ 4. अनुच्छेद 154

Question ID : 4410091537116
Option 1 ID : 4410096071756
Option 2 ID : 4410096071757
Option 3 ID : 4410096071758
Option 4 ID : 4410096071755

Q.10 निम्नलिखित में से किसे "ग्रैंड ओल्ड मैन ऑफ इंडिया" के नाम से जाना जाता है?

Ans
✗ 1. गोपाल कृष्ण गोखले
✗ 2. बाल गंगाधर तिलक
✗ 3. लाला लाजपत राय
✓ 4. दादाभाई नौरोजी

Question ID : 4410091550057
Option 1 ID : 4410096135644
Option 2 ID : 4410096135645
Option 3 ID : 4410096135646
Option 4 ID : 4410096135643

QuickSarkari.com | WhatsApp Channel | Telegram: t.me/quick_sarkari

Q.11 **उन्नीसवीं शताब्दी के भारत में वहाबी आंदोलन (Wahabi Movement) का प्राथमिक उद्देश्य क्या था?**

Ans ✗ 1. आधुनिक संस्थानों के माध्यम से भारतीय मुसलमानों के बीच पश्चिमी शिक्षा को बढ़ावा देना

✗ 2. शांतिपूर्ण याचिकाओं के माध्यम से अंग्रेजों से प्रशासनिक रियायतों पर बातचीत करना

✓ 3. शुद्धिवादी इस्लाम को पुनर्जीवित करना तथा धार्मिक-राजनीतिक लामबंदी के माध्यम से ब्रिटिश सत्ता का प्रतिरोध करना

✗ 4. मुस्लिम समाज में सामाजिक रीति-रिवाजों में सुधार करना और जातिगत भेदभाव के विरुद्ध अभियान चलाना

Question ID : 4410091550012
Option 1 ID : 4410096136002
Option 2 ID : 4410096135999
Option 3 ID : 4410096136001
Option 4 ID : 4410096136000

Q.12 **भारत के मैंग्रोव पारिस्थितिकी तंत्र में कौन-सी वृक्ष प्रजाति, प्रमुखता से पाई जाती है?**

Ans ✗ 1. चीड़ (Pine)

✓ 2. सुंदरी (Sundari)

✗ 3. सागौन (Teak)

✗ 4. ओक (Oak)

Question ID : 4410091550594
Option 1 ID : 4410096128886
Option 2 ID : 4410096128885
Option 3 ID : 4410096128883
Option 4 ID : 4410096128884

Q.13 **भारतीय राष्ट्रीय आंदोलन के उग्रवादी चरण (1905) के दौरान, राष्ट्रवादी प्रतिरोध के रूप में किस आंदोलन ने व्यापक लोकप्रियता प्राप्त की?**

Ans ✗ 1. सविनय अवज्ञा आंदोलन

✓ 2. स्वदेशी और बहिष्कार आंदोलन

✗ 3. खिलाफत और हिजरत आंदोलन

✗ 4. चंपारण आंदोलन

Question ID : 4410091550036
Option 1 ID : 4410096135784
Option 2 ID : 4410096135783
Option 3 ID : 4410096135785
Option 4 ID : 4410096135786

QuickSarkari.com | WhatsApp Channel | Telegram: t.me/quick_sarkari

Q.14 **भारत के संविधान के अनुच्छेद 53(1) के अनुसार, संघ की कार्यकारी शक्ति किसमें निहित होती है?**

Ans
✗ 1. मंत्रिपरिषद

✗ 2. भारत की संसद

✗ 3. भारत के प्रधानमंत्री

✓ 4. भारत के राष्ट्रपति

Question ID : 4410091537134
Option 1 ID : 4410096071829
Option 2 ID : 4410096071830
Option 3 ID : 4410096071827
Option 4 ID : 4410096071828

Q.15 **संपूर्ण ग्रामीण रोजगार योजना (SGRY) का प्राथमिक उद्देश्य क्या है?**

Ans
✗ 1. ग्रामीण क्षेत्रों में स्थायी वैतनिक रोजगार प्रदान करना

✓ 2. ग्रामीण क्षेत्रों में अतिरिक्त मजदूरी रोजगार सृजन करना

✗ 3. ग्रामीण उद्यमिता और स्व-रोजगार को प्रोत्साहित करना

✗ 4. शहरी क्षेत्रों में रोजगार के अवसरों का विस्तार करना

Question ID : 4410091542195
Option 1 ID : 4410096091891
Option 2 ID : 4410096091892
Option 3 ID : 4410096091893
Option 4 ID : 4410096091894

Q.16 **जनसांख्यिकीय और सार्वजनिक स्वास्थ्य आंकड़ों में, कौन-सा सूचक विशेष रूप से किसी दिए गए वर्ष में प्रति 1,000 जीवित जन्मों पर एक वर्ष की आयु तक पहुंचने से पहले मरने वाले शिशुओं की संख्या को मापता है?**

Ans
✗ 1.
नवजात मृत्यु दर

✓ 2.
शिशु मृत्यु दर

✗ 3. अशोधित मृत्यु दर

✗ 4. पाँच वर्ष से कम आयु की मृत्यु दर

Question ID : 4410091550723
Option 1 ID : 4410096126988
Option 2 ID : 4410096126987
Option 3 ID : 4410096126990
Option 4 ID : 4410096126989

QuickSarkari.com | WhatsApp Channel | Telegram: t.me/quick_sarkari

Q.17 **अधिक ऊँचाई वाले क्षेत्रों में पर्वतीय वर्षा (orographic rainfall) के लिए उत्तरदायी प्राथमिक तंत्र क्या है?**

Ans
✗ 1. निम्न दाब वाली प्रणालियाँ आर्द्र वायु में आकर्षित होती हैं, जिससे व्यापक वर्षण होता है।
✗ 2. एक वाताग्र के सहारे विपरीत वायु द्रव्यमानों का अभिसरण, जिससे वायु ऊपर उठती है और वर्षा होती है।
✓ 3. पर्वतों के ऊपर आर्द्र वायु का बलपूर्वक ऊपर उठना, ठंडा होना और संघनित होकर वर्षा करना।
✗ 4. निम्न भूमि क्षेत्रों में तीव्र सतह तापन के कारण उष्ण वायु का ऊर्ध्वाधर रूप से ऊपर उठना।

Question ID : 4410091550611
Option 1 ID : 4410096128810
Option 2 ID : 4410096128809
Option 3 ID : 4410096128807
Option 4 ID : 4410096128808

Q.18 **भारतीय संविधान में मौलिक कर्तव्यों को किस सांविधानिक संशोधन अधिनियम के माध्यम से सम्मिलित किया गया था?**

Ans
✗ 1. 44वें संशोधन
✗ 2. 61वें संशोधन
✓ 3. 42वें संशोधन
✗ 4. 52वें संशोधन

Question ID : 4410091536775
Option 1 ID : 4410096070332
Option 2 ID : 4410096070334
Option 3 ID : 4410096070331
Option 4 ID : 4410096070333

Q.19 **निम्नलिखित में से कौन-सा जलवायु कारक, मुख्य रूप से भारत में ग्रीष्म ऋतु के विकास का कारण बनता है?**

Ans
✗ 1. पश्चिमी विक्षोभ का आगमन
✓ 2. भूमि के पृष्ठ का तीव्र तापन
✗ 3. दक्षिण-पश्चिम मानसूनी पवनों की शुरुआत
✗ 4. उत्तर-पूर्व मानसूनी पवनों का निवर्तन

Question ID : 4410091550146
Option 1 ID : 4410096128958
Option 2 ID : 4410096128955
Option 3 ID : 4410096128956
Option 4 ID : 4410096128957

QuickSarkari.com | WhatsApp Channel | Telegram: t.me/quick_sarkari

Q.20 भारत के निर्वाचन आयोग की स्थापना संविधान के किस अनुच्छेद के अधीन की गई है?

Ans ✔ 1. अनुच्छेद 324

✗ 2. अनुच्छेद 148

✗ 3. अनुच्छेद 315

✗ 4. अनुच्छेद 280

Question ID : 4410091536727
Option 1 ID : 4410096070113
Option 2 ID : 4410096070115
Option 3 ID : 4410096070114
Option 4 ID : 4410096070112

Section : General Awareness1

Q.1 भारत के किस राज्य में गंगा सागर मेला मनाया जाता है?

Ans ✗ 1. उत्तर प्रदेश

✔ 2. पश्चिम बंगाल

✗ 3. बिहार

✗ 4. ओडिशा

Question ID : 4410091545037
Option 1 ID : 4410096103182
Option 2 ID : 4410096103181
Option 3 ID : 4410096103180
Option 4 ID : 4410096103179

Q.2 निम्नलिखित में से कौन-सा रक्षा अभ्यास जुलाई 2025 में जोधपुर में आयोजित किया गया था?

Ans ✗ 1. मालाबार

✔ 2. बोल्ड कुरुक्षेत्र

✗ 3. युद्ध अभ्यास

✗ 4. इंद्र

Question ID : 4410091549402
Option 1 ID : 4410096120312
Option 2 ID : 4410096120310
Option 3 ID : 4410096120309
Option 4 ID : 4410096120311

QuickSarkari.com | WhatsApp Channel | Telegram: t.me/quick_sarkari

Q.3 **भारत के खेल पारिस्थितिकी तंत्र का पुनरुद्धार करने और नागरिक भागीदारी को प्रोत्साहित करने के लिए केंद्रीय मंत्रिमंडल ने जुलाई 2025 में किस खेल नीति को मंजूरी दी थी?**

Ans
✗ 1.
राष्ट्रीय खेल विकास नीति 2025

✗ 2.
राष्ट्रीय ओलंपिक तैयारी नीति 2025

✗ 3.
राष्ट्रीय खेल सुशासन ढांचा 2025

✓ 4.
राष्ट्रीय खेल नीति 2025

Question ID : 4410091549211
Option 1 ID : 4410096119545
Option 2 ID : 4410096119547
Option 3 ID : 4410096119548
Option 4 ID : 4410096119546

Q.4 **नवंबर 2025 में, भारतीय सिनेमा में 50 वर्ष पूरे करने के लिए IFFI (इंटरनेशनल फिल्म फेस्टिवल ऑफ इंडिया) में किस अभिनेता को सम्मानित किया गया था?**

Ans
✗ 1. धर्मेंद्र

✗ 2. अमिताभ बच्चन

✓ 3. रजनीकांत

✗ 4. जितेंद्र

Question ID : 4410091549190
Option 1 ID : 4410096119464
Option 2 ID : 4410096119461
Option 3 ID : 4410096119462
Option 4 ID : 4410096119463

Q.5 **बैंकिंग कानून (संशोधन) अधिनियम, 2025 के अंतर्गत संशोधनों में निम्नलिखित में से कौन-सा कौन-सा अधिनियम शामिल है?**

Ans
✗ 1.
कंपनी अधिनियम, 2013

✗ 2.
परक्राम्य लिखत अधिनियम, 1881

✗ 3.
प्रतिभूति संविदा (विनियमन) अधिनियम, 1956

✓ 4. बैंककारी कम्पनी (उपक्रमों का अर्जन और अन्तरण) अधिनियम, 1970

Question ID : 4410091566433
Option 1 ID : 4410096187138
Option 2 ID : 4410096187139
Option 3 ID : 4410096187137
Option 4 ID : 4410096187136

QuickSarkari.com | WhatsApp Channel | Telegram: t.me/quick_sarkari

Q.6 **जुलाई 2025 में, किस व्यापार संघ ने कार्य के भविष्य पर फोकस करके जन शिखर सम्मेलन का आयोजन किया?**

Ans
✗ 1. फेडरेशन ऑफ इंडियन चैंबर्स ऑफ कॉमर्स एंड इंडस्ट्री (FICCI)

✓ 2. नेशनल एसोसिएशन ऑफ सॉफ्टवेयर एंड सर्विस कंपनीज (NASSCOM)

✗ 3. भारतीय उद्योग परिसंघ (CII)

✗ 4. भारतीय बैंक संघ (IBA)

Question ID : 4410091539373
Option 1 ID : 4410096080832
Option 2 ID : 4410096080830
Option 3 ID : 4410096080831
Option 4 ID : 4410096080829

Q.7 **नंदकिशोर कपोटे को 2020 में संगीत नाटक अकादमी पुरस्कार निम्नलिखित में से किस श्रेणी में दिया गया था?**

Ans
✗ 1. ओडिसी नृत्य

✓ 2. कथक नृत्य

✗ 3. भरतनाट्यम नृत्य

✗ 4. मणिपुरी नृत्य

Question ID : 4410096078 27
Option 1 ID : 4410092386427
Option 2 ID : 4410092386425
Option 3 ID : 4410092386428
Option 4 ID : 4410092386426

Q.8 **जनवरी 2026 में, ओडिशा और मेघालय की सरकारों ने निम्नलिखित में से किस क्षेत्र को मजबूत करने के लिए एक समझौता ज्ञापन (MoU) पर हस्ताक्षर किए?**

Ans
✗ 1. हाशिए पर पड़े समुदायों के लिए गुणवत्तापूर्ण उच्च शिक्षा तक पहुंच में सुधार करना

✗ 2. वंचितों (vulnerable populations) में गरीबी और बेरोजगारी को कम करना

✓ 3. प्रारंभिक बाल्यावस्था देखभाल, अधिगम और विकास को बढ़ाना

✗ 4. महिलाओं और बच्चों के लिए जेंडर समानता और सुरक्षा को बढ़ावा देना

Question ID : 4410091567062
Option 1 ID : 4410096189571
Option 2 ID : 4410096189574
Option 3 ID : 4410096189572
Option 4 ID : 4410096189573

Q.9 खुले में रखी नेप्थलीन की गोलियाँ धीरे-धीरे गायब हो जाती हैं और कोई ठोस अवशेष नहीं छोड़ती हैं। इस घटना के लिए कौन-सी भौतिक प्रक्रिया उत्तरदायी है?

Ans ✔ 1. ऊर्ध्वपातन

✗ 2. वाष्पीकरण

✗ 3. संघनन

✗ 4. गलन

Question ID : 4410009625259
Option 1 ID : 4410092455169
Option 2 ID : 4410092455168
Option 3 ID : 4410092455171
Option 4 ID : 4410092455170

Q.10 ब्रांड फाइनेंस की एनर्जी 100 2025 रिपोर्ट के अनुसार, किस कंपनी ने विश्व के सबसे मूल्यवान तेल एवं गैस ब्रांड के रूप में अपना शीर्ष स्थान बरकरार रखा है?

Ans ✗ 1. सिनोपेक ग्रुप (Sinopec Group)

✔ 2. शेल (Shell)

✗ 3. टोटलएनर्जीज़ (TotalEnergies)

✗ 4. अरामको (Aramco)

Question ID : 4410091535064
Option 1 ID : 4410096063495
Option 2 ID : 4410096063497
Option 3 ID : 4410096063498
Option 4 ID : 4410096063496

Q.11 केरल के मालाबार क्षेत्र की किस क्षेत्र की सहकारी समितियों को राष्ट्रीय गोपाल रत्न पुरस्कार (NGRA) 2025 में शीर्ष सम्मान से सम्मानित किया गया था?

Ans ✗ 1. मत्स्य पालन सहकारी समिति

✔ 2. डेयरी सहकारी समिति

✗ 3. कृषि सहकारी समिति

✗ 4. ऋण सहकारी समिति

Question ID : 4410091539406
Option 1 ID : 4410096080963
Option 2 ID : 4410096080961
Option 3 ID : 4410096080962
Option 4 ID : 4410096080964

QuickSarkari.com | WhatsApp Channel | Telegram: t.me/quick_sarkari

Q.12 उस अभिक्रिया का नाम क्या है जिसमें एक अम्ल उत्प्रेरक की उपस्थिति में एक अल्कोहल, कार्बोक्सिलिक अम्ल के साथ अभिक्रिया करके मीठी सुगंध वाला यौगिक बनाता है?

Ans
✗ 1. हाइड्रोजनीकरण (Hydrogenation)
✓ 2. एस्टरीकरण (Esterification)
✗ 3. ऑक्सीकरण (Oxidation)
✗ 4. उदासीनीकरण (Neutralization)

Question ID : 4410091625075
Option 1 ID : 4410092454435
Option 2 ID : 4410092454432
Option 3 ID : 4410092454434
Option 4 ID : 4410092454433

Q.13 नवंबर 2025 में, संशोधित भारत नेट योजना (Bharat Net Scheme) को लागू करने वाला भारत का पहला राज्य कौन बना?

Ans
✗ 1. गुजरात
✗ 2. ओडिशा
✓ 3. पंजाब
✗ 4. केरल

Question ID : 4410091549427
Option 1 ID : 4410096120412
Option 2 ID : 4410096120409
Option 3 ID : 4410096120410
Option 4 ID : 4410096120411

Q.14 BBC के किस प्रतिष्ठित संवाददाता, जिन्हें 'वॉयस ऑफ इंडिया (voice of India)' के रूप में जाना जाता है, का जनवरी 2026 में निधन हो गया?

Ans
✗ 1. क्रिस्टियान अमनपोर (Christiane Amanpour)
✗ 2. जॉन स्नो (Jon Snow)
✗ 3. एंड्रयू नील (Andrew Neil)
✓ 4. मार्क टली (Mark Tully)

Question ID : 4410091549196
Option 1 ID : 4410096119486
Option 2 ID : 4410096119488
Option 3 ID : 4410096119487
Option 4 ID : 4410096119485

QuickSarkari.com | WhatsApp Channel | Telegram: t.me/quick_sarkari

Q.15 **भारतीय दर्शन की न्याय प्रणाली में, प्रमा (वैध ज्ञान) से क्या तात्पर्य है?**

Ans
✗ 1. किसी वस्तु की प्रतीकात्मक या भाषाई समझ

✗ 2. परमतत्त्व की तत्काल सहज अनुभूति

✗ 3. केवल इंद्रिय बोध के माध्यम से प्राप्त ज्ञान

✓ 4. सत् के अनुरूप किसी वस्तु का पूर्ण ज्ञान

Question ID : 4410096059O6
Option 1 ID : 4410092378741
Option 2 ID : 4410092378744
Option 3 ID : 4410092378743
Option 4 ID : 4410092378742

Q.16 **फातिमा बॉश, जिन्हें मिस यूनिवर्स 2025 का ताज पहनाया गया, किस देश का प्रतिनिधित्व करती हैं?**

Ans
✓ 1. मेक्सिको

✗ 2. स्पेन

✗ 3. स्वीडन

✗ 4. नॉर्वे

Question ID : 4410091535108
Option 1 ID : 4410096063679
Option 2 ID : 4410096063680
Option 3 ID : 4410096063682
Option 4 ID : 4410096063681

Q.17 **नवंबर 2025 में, निम्नलिखित में से किस भारतीय खेल उपलब्धि को व्यापक रूप से देश के लिए पहली ऐतिहासिक उपलब्धि के रूप में मान्यता दी गई?**

Ans
✗ 1. पुरुषों का एशिया कप T20 जीत (Men's Asia Cup T20 victory)

✗ 2. हॉकी एशिया कप डिफेन्स (Hockey Asia Cup defence)

✗ 3. पैरा एथलीट वर्ल्ड गेम्स मेडल (Para Athletes World Games medals)

✓ 4. महिला वर्ल्ड कप टाइटल (Women's World Cup title)

Question ID : 4410091549216
Option 1 ID : 4410096119565
Option 2 ID : 4410096119568
Option 3 ID : 4410096119567
Option 4 ID : 4410096119566

QuickSarkari.com | WhatsApp Channel | Telegram: t.me/quick_sarkari

Q.18 नवंबर 2025 में बिहार विधानसभा चुनाव में निम्नलिखित में से कौन-सा दल सबसे बड़े दल के रूप में उभरा?

Ans
✔ 1. बीजेपी
✘ 2. जेडी(यू)
✘ 3. आरजेडी
✘ 4. आईएनसी

Question ID : 4410091549417
Option 1 ID : 4410096120369
Option 2 ID : 4410096120370
Option 3 ID : 4410096120371
Option 4 ID : 4410096120372

Q.19 संविधान (एक सौ तीसवां संशोधन) विधेयक, 2025 निम्नलिखित में से किस संवैधानिक अनुच्छेद में संशोधन करना चाहता है?

Ans
✘ 1. अनुच्छेद 14, 19 और 21
✔ 2. अनुच्छेद 75, 164 और 239AA
✘ 3. अनुच्छेद 44, 45 और 46
✘ 4. अनुच्छेद 32, 226 और 227

Question ID : 4410091566428
Option 1 ID : 4410096187116
Option 2 ID : 4410096187117
Option 3 ID : 4410096187119
Option 4 ID : 4410096187118

Q.20 मानव में, साल्मोनेला टाइफी (Salmonella typhi) नामक जीवाणु के संक्रमण से कौन-सा रोग होता है?

Ans
✘ 1. हैज़ा (Cholera)
✔ 2. आंत्रिक ज्वर (Typhoid fever)
✘ 3. मलेरिया (Malaria)
✘ 4. यक्ष्मा (Tuberculosis)

Question ID : 4410091545561
Option 1 ID : 4410096105263
Option 2 ID : 4410096105264
Option 3 ID : 4410096105266
Option 4 ID : 4410096105265

Section : Arithmetical and Numerical Ability

QuickSarkari.com | WhatsApp Channel | Telegram: t.me/quick_sarkari

Q.1 एक परीक्षा में, पूर्णांक 95 में से B को 54 अंक प्राप्त हुए जबकि A को 75 अंक प्राप्त हुए। B के अंक, A के अंकों का कितना प्रतिशत था?

Ans
✗ 1. 95%
✗ 2. 138.89%
✗ 3. 78.95%
✓ 4. 72%

Question ID : 4410009857265
Option 1 ID : 4410093382034
Option 2 ID : 4410093382033
Option 3 ID : 4410093382035
Option 4 ID : 4410093382032

Q.2 सरल कीजिए: $\sqrt{324} + \sqrt{121} - (\sqrt{225} \div \sqrt{25})$

Ans
✗ 1. 22
✗ 2. 23
✗ 3. 18
✓ 4. 26

Question ID : 4410091535450
Option 1 ID : 4410096065068
Option 2 ID : 4410096065067
Option 3 ID : 4410096065070
Option 4 ID : 4410096065069

Q.3 एक रसायन के क्रमशः 25% और 45% सांद्रता वाले दो द्रवों को इस प्रकार मिश्रित किया जाता है कि परिणामी मिश्रण की सांद्रता 35% हो जाती है। यदि मिश्रण की कुल मात्रा 40 लीटर है, तो मिश्रण में 25% सांद्रता वाले द्रव की मात्रा (लीटर में) ज्ञात कीजिए।

Ans
✓ 1. 20 लीटर
✗ 2. 25 लीटर
✗ 3. 35 लीटर
✗ 4. 30 लीटर

Question ID : 4410091528302
Option 1 ID : 4410096036401
Option 2 ID : 4410096036400
Option 3 ID : 4410096036399
Option 4 ID : 4410096036402

QuickSarkari

Q.4 एक स्कूल अभ्यास के लिए विद्यार्थियों को पंक्तियों में व्यवस्थित करना चाहता है। स्कूल में 48 लड़के और 60 लड़कियाँ हैं। प्रत्येक पंक्ति में लड़कों और लड़कियों की संख्या बराबर होनी चाहिए और सभी विद्यार्थी सम्मिलित होने चाहिए। अधिकतम कितनी पंक्तियाँ बनाई जा सकती हैं?

Ans
✗ 1. 6
✗ 2. 16
✓ 3. 12
✗ 4. 8

Question ID : 4410091530553
Option 1 ID : 4410096045297
Option 2 ID : 4410096045296
Option 3 ID : 4410096045295
Option 4 ID : 4410096045298

Q.5 यदि $K = 5 \div (10 \div 5)\ of\ 2$ है और $T = 9 - \{(3 \times 4) \div 12 + (5 - 3 + 2)\}$ है. तो $(K \times T + 1)$ का मान ज्ञात कीजिए।

Ans
✗ 1. 7
✗ 2. 9
✓ 3. 6
✗ 4. 5

Question ID : 4410091518826
Option 1 ID : 4410095998584
Option 2 ID : 4410095998585
Option 3 ID : 4410095998583
Option 4 ID : 4410095998582

Q.6 यदि ₹79,700 की धनराशि को 3% वार्षिक ब्याज की दर पर 2 वर्षों के लिए जमा किया जाता है. तो चक्रवृद्धि ब्याज (जब ब्याज वार्षिक रूप से संयोजित होता है) और साधारण ब्याज के बीच का अंतर ज्ञात कीजिए।

Ans
✓ 1. ₹71.73
✗ 2. ₹70.17
✗ 3. ₹74.15
✗ 4. ₹66.86

Question ID : 4410095721178
Option 1 ID : 4410092243832
Option 2 ID : 4410092243835
Option 3 ID : 4410092243834
Option 4 ID : 4410092243833

QuickSarkari.com | WhatsApp Channel | Telegram: t.me/quick_sarkari

Q.7 यदि प्रथम 35 प्राकृत संख्याओं का योगफल S है और प्रथम 12 सम प्राकृत संख्याओं का योगफल T है जो कि 3 से विभाज्य हैं, तो S - T का मान ज्ञात कीजिए।

Ans
✗ 1. 159
✗ 2. 166
✓ 3. 162
✗ 4. 155

Question ID : 4410091518549
Option 1 ID : 4410095997455
Option 2 ID : 4410095997457
Option 3 ID : 4410095997456
Option 4 ID : 4410095997454

Q.8 ₹3000 की उधार ली गई धनराशि पर 7% वार्षिक ब्याज दर पर 4 वर्ष का साधारण ब्याज (₹ में) ज्ञात कीजिए।

Ans
✗ 1. 880
✓ 2. 840
✗ 3. 800
✗ 4. 780

Question ID : 4410093852974
Option 1 ID : 4410093364869
Option 2 ID : 4410093364868
Option 3 ID : 4410093364871
Option 4 ID : 4410093364870

QuickSarkari.com | WhatsApp Channel | Telegram: t.me/quick_sarkari

Q.9 **पाई चार्ट का अध्ययन करें और उसके बाद दिए गए प्रश्न का उत्तर दें।**

दिए गए पाई चार्ट में एक कंपनी के कर्मचारियों का पाँच विभागों में वितरण (distribution) **दर्शाया गया है। कर्मचारियों की कुल संख्या** 800 **है।**

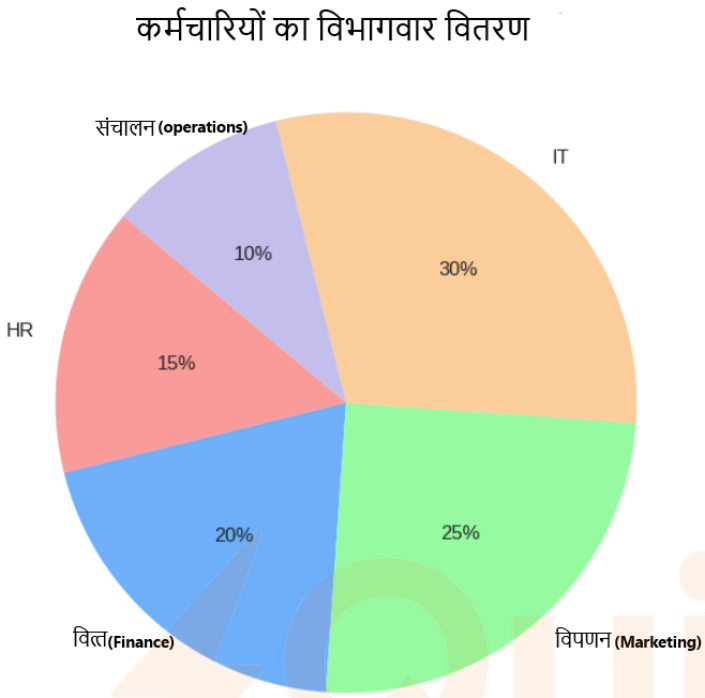

HR और संचालन विभागों की तुलना में IT **और विपणन विभागों में संयुक्त रूप से कितने अधिक कर्मचारी हैं?**

Ans
- ✔ 1. 240 कर्मचारी
- ✘ 2. 245 कर्मचारी
- ✘ 3. 260 कर्मचारी
- ✘ 4. 200 कर्मचारी

Question ID : 4410091568209
Option 1 ID : 4410096194117
Option 2 ID : 4410096194119
Option 3 ID : 4410096194118
Option 4 ID : 4410096194116

QuickSarkari.com | WhatsApp Channel | Telegram: t.me/quick_sarkari

Q.10 तीन घंटियाँ क्रमशः एक घंटे, 90 मिनट और एक घंटे 45 मिनट के अंतराल पर बजती हैं। यदि 13:00 बजे घंटियाँ एक साथ बजती हैं, तो वे पुनः एक साथ कब बजेंगी?

Ans
✗ 1.
अगले दिन 09:20 बजे

✓ 2.
अगले दिन 10:00 बजे

✗ 3.
अगले दिन 09:45 बजे

✗ 4.
अगले दिन 09:00 बजे

Question ID : 4410091518689
Option 1 ID : 4410095998035
Option 2 ID : 4410095998037
Option 3 ID : 4410095998036
Option 4 ID : 4410095998034

Q.11 निम्नलिखित तालिका एक निर्माण कंपनी के विभिन्न विभागों में लगातार पांच वर्षों में कार्यरत कर्मचारियों की संख्या दर्शाती है।

वर्ष	प्लंबिंग	लैंडस्केपिंग	विद्युत	उत्खनन	वित्त
2010	30	20	65	60	15
2011	10	15	80	80	40
2012	20	35	35	55	70
2013	40	10	50	75	45
2014	50	25	60	90	55

पिछले पांच वर्षों में उत्खनन विभाग में कर्मचारियों की औसत संख्या ज्ञात कीजिए।

Ans
✗ 1. 73

✗ 2. 74

✓ 3. 72

✗ 4. 70

Question ID : 4410091512314
Option 1 ID : 4410095973354
Option 2 ID : 4410095973355
Option 3 ID : 4410095973353
Option 4 ID : 4410095973352

QuickSarkari.com | WhatsApp Channel | Telegram: t.me/quick_sarkari

Q.12 एक पंसारी को ₹91 प्रति kg और ₹127 प्रति kg मूल्य के दो किस्म के गेहूं को किस अनुपात में मिलाना चाहिए ताकि यदि वह मिश्रण को ₹135 प्रति kg पर बेचे तो उसे 35% का लाभ हो?

Ans
✗ 1. 13:6
✗ 2. 5:3
✗ 3. 5:2
✓ 4. 3:1

Question ID : 4410095802O6
Option 1 ID : 4410092275953
Option 2 ID : 4410092275952
Option 3 ID : 4410092275951
Option 4 ID : 4410092275950

Q.13 एक गाँव की जनसंख्या 170000 थी। पहले वर्ष में इसमें 15% की वृद्धि हुई और दूसरे वर्ष में 30% की वृद्धि हुई। दो वर्ष के बाद गाँव की जनसंख्या कितनी होगी?

Ans
✗ 1. 221000
✗ 2. 246500
✓ 3. 254150
✗ 4. 195500

Question ID : 4410098595Z7
Option 1 ID : 4410093391082
Option 2 ID : 4410093391083
Option 3 ID : 4410093391080
Option 4 ID : 4410093391081

Q.14 राज के पास ₹1,323 थे। उसने इसे अपने बेटों वरुण और आशीष के बीच विभाजित किया और उन्हें धनराशि को 10% वार्षिक ब्याज (वार्षिक रूप से संयोजित) पर निवेश करने को कहा। यह पाया जाता है कि वरुण और आशीष को क्रमशः 13 वर्ष और 14 वर्ष बाद समान धनराशि प्राप्त हुई। राज ने आशीष को कितनी धनराशि (₹ में) दी?

Ans
✗ 1. 480
✓ 2. 630
✗ 3. 693
✗ 4. 793

Question ID : 4410095736Z3
Option 1 ID : 4410092249654
Option 2 ID : 4410092249652
Option 3 ID : 4410092249653
Option 4 ID : 4410092249655

Q.15 एक पंसारी को ₹59 प्रति kg और ₹61 प्रति kg मूल्य के दो किस्म के गेहूं को किस अनुपात में मिलाना चाहिए ताकि यदि वह मिश्रण को ₹90 प्रति kg पर बेचे तो उसे 50% का लाभ हो?

Ans
✔ 1. 1:1
✘ 2. 4:5
✘ 3. 1:2
✘ 4. 3:2

Question ID : 4410009580202
Option 1 ID : 4410092275934
Option 2 ID : 4410092275937
Option 3 ID : 4410092275936
Option 4 ID : 4410092275935

Q.16 निम्नलिखित में से कौन-सी संख्या, 11 से विभाज्य है?

Ans
✘ 1. 813807
✔ 2. 842622
✘ 3. 842684
✘ 4. 824859

Question ID : 4410091507856
Option 1 ID : 4410095956179
Option 2 ID : 4410095956178
Option 3 ID : 4410095956177
Option 4 ID : 4410095956180

Q.17 k के किस मान के लिए छह अंकों की संख्या 84353k, 8 से विभाज्य है?

Ans
✔ 1. 6
✘ 2. 4
✘ 3. 2
✘ 4. 8

Question ID : 4410091481069
Option 1 ID : 4410095851408
Option 2 ID : 4410095851407
Option 3 ID : 4410095851406
Option 4 ID : 4410095851409

QuickSarkari.com | WhatsApp Channel | Telegram: t.me/quick_sarkari

Q.18 यह दिया गया है कि $121^{0.63} = x$, $121^{0.04} = y$ और $x^z = y^{10}$ है, तो z का लगभग मान ज्ञात कीजिए।

Ans
✗ 1. 1.1
✗ 2. 2.87
✗ 3. 1.62
✓ 4. 0.63

Question ID : 4410009560425
Option 1 ID : 4410092196970
Option 2 ID : 4410092196969
Option 3 ID : 4410092196968
Option 4 ID : 4410092196967

Q.19 निम्नलिखित व्यंजक को सरल कीजिए।

$$\frac{2^7 \times 8^{-3}}{4^{-1}}$$

Ans
✗ 1. $\frac{1}{2}$
✗ 2. 2
✗ 3. 0
✓ 4. 1

Question ID : 4410091506848
Option 1 ID : 4410095951947
Option 2 ID : 4410095951949
Option 3 ID : 4410095951946
Option 4 ID : 4410095951948

Q.20 एक वस्तु की एक किस्म का मूल्य ₹8 प्रति ग्राम है और दूसरी किस्म का मूल्य ₹13 प्रति ग्राम है। दोनों किस्मों को किस अनुपात में मिश्रित किया जाना चाहिए ताकि मिश्रण का मूल्य ₹11 प्रति ग्राम हो जाए?

Ans
✗ 1. 3 : 2
✗ 2. 4 : 3
✗ 3. 3 : 4
✓ 4. 2 : 3

Question ID : 4410091537546
Option 1 ID : 4410096073471
Option 2 ID : 4410096073474
Option 3 ID : 4410096073473
Option 4 ID : 4410096073472

Section : Arithmetical and Numerical Ability1

QuickSarkari.com | WhatsApp Channel | Telegram: t.me/quick_sarkari

Q.1 एक पाइप एक टैंक को 6 घंटे में भर सकता है, और दूसरा पाइप उसे 9 घंटे में भर सकता है। दोनों पाइपों को एक साथ टंकी को भरने में कितना समय लगेगा?

Ans
✗ 1. 4 घंटे 30 मिनट
✗ 2. 3 घंटे
✗ 3. 4 घंटे
✓ 4. 3 घंटे 36 मिनट

Question ID : 4410091493721
Option 1 ID : 4410095900499
Option 2 ID : 4410095900496
Option 3 ID : 4410095900498
Option 4 ID : 4410095900497

Q.2 एक वस्तु की कीमत ₹2,000 है। दुकानदार 15% और 10% की दो क्रमिक छूट देता है। वस्तु का विक्रय मूल्य ज्ञात कीजिए।

Ans
✗ 1. ₹1,550
✗ 2. ₹1,520
✗ 3. ₹1,540
✓ 4. ₹1,530

Question ID : 4410091519046
Option 1 ID : 4410095999433
Option 2 ID : 4410095999430
Option 3 ID : 4410095999432
Option 4 ID : 4410095999431

Q.3 माधुरी एक प्रोजेक्ट का कार्य 20 दिन में कर सकती है और नलिनी इसे 30 दिन में कर सकती है। वे दोनों एकसाथ मिलकर उस कार्य को कितने दिन में पूरा करेंगी?

Ans
✗ 1. 15 दिन
✗ 2. 14 दिन
✗ 3. 10 दिन
✓ 4. 12 दिन

Question ID : 4410091493722
Option 1 ID : 4410095900503
Option 2 ID : 4410095900502
Option 3 ID : 4410095900500
Option 4 ID : 4410095900501

QuickSarkari.com | WhatsApp Channel | Telegram: t.me/quick_sarkari

Q.4 15 cm × 9 cm × 6 cm विमाओं वाले एक घनाभ को पिघलाकर 3 cm कोर वाले छोटे घन बनाए जाते हैं। इस प्रकार से बनने वाले घनों की संख्या ज्ञात कीजिए।

Ans
✔ 1. 30
✘ 2. 24
✘ 3. 27
✘ 4. 18

Question ID : 4410091500651
Option 1 ID : 4410095927517
Option 2 ID : 4410095927515
Option 3 ID : 4410095927516
Option 4 ID : 4410095927514

Q.5 एक शंकु का आयतन 1232 cm^3 है। यदि शंकु की ऊँचाई 24 cm है, तो शंकु के आधार की त्रिज्या (cm में) ज्ञात कीजिए। ($\pi = \frac{22}{7}$ का उपयोग कीजिए)

Ans
✘ 1. 3.5
✘ 2. 10.5
✔ 3. 7
✘ 4. 12

Question ID : 4410091540610
Option 1 ID : 4410096085738
Option 2 ID : 4410096085740
Option 3 ID : 4410096085739
Option 4 ID : 4410096085741

Q.6 एक घन के समष्टि विकर्ण (space diagonal) की लंबाई, 196 cm^2 क्षेत्रफल वाले एक वर्ग के विकर्ण के बराबर है। घन का आयतन ज्ञात कीजिए। (दशमलव के 2 स्थानों तक पूर्णांकित)

Ans
✘ 1. 1506.02 cm^3
✔ 2. 1493.64 cm^3
✘ 3. 1427.54 cm^3
✘ 4. 1459.42 cm^3

Question ID : 4410091504248
Option 1 ID : 4410095941441
Option 2 ID : 4410095941440
Option 3 ID : 4410095941438
Option 4 ID : 4410095941439

QuickSarkari.com | WhatsApp Channel | Telegram: t.me/quick_sarkari

Q.7 14 cm त्रिज्या वाले एक धात्विक गोले को पिघलाकर तीन अपेक्षाकृत छोटे गोले बनाए जाते हैं। यदि दो छोटे गोलों की त्रिज्याएं क्रमशः 5 cm और 9 cm हैं, तो तीसरे गोले की त्रिज्या (दशमलव के एक स्थान तक पूर्णांकित) कितनी होगी?

Ans
✗ 1. 14.6 cm
✓ 2. 12.4 cm
✗ 3. 13.6 cm
✗ 4. 11.4 cm

Question ID : 4410091513090
Option 1 ID : 4410095976393
Option 2 ID : 4410095976391
Option 3 ID : 4410095976392
Option 4 ID : 4410095976390

Q.8 ₹11,200 को तीन हिस्से में इस प्रकार विभाजित कीजिए कि पहले हिस्से का $\frac{1}{2}$ भाग, दूसरे हिस्से का $\frac{1}{4}$ भाग और तीसरे हिस्से का $\frac{1}{8}$ भाग बराबर हो। पहले हिस्से का मान (₹ में) ज्ञात कीजिए।

Ans
✗ 1. 1300
✗ 2. 1500
✗ 3. 1400
✓ 4. 1600

Question ID : 4410095460002
Option 1 ID : 4410092139406
Option 2 ID : 4410092139405
Option 3 ID : 4410092139407
Option 4 ID : 4410092139404

Q.9 एक लंबवृत्तीय शंकु का आयतन 1232 cm^3 और ऊँचाई 24 cm है। शंकु का सम्पूर्ण पृष्ठीय क्षेत्रफल ज्ञात कीजिए। $\pi = \frac{22}{7}$ लीजिए

Ans
✗ 1. 700 sq cm
✗ 2. 407 sq cm
✗ 3. 714 sq cm
✓ 4. 704 sq cm

Question ID : 4410091564562
Option 1 ID : 4410096179835
Option 2 ID : 4410096179833
Option 3 ID : 4410096179836
Option 4 ID : 4410096179834

QuickSarkari.com | WhatsApp Channel | Telegram: t.me/quick_sarkari

Q.10 35 cm ऊंचाई और 10 cm त्रिज्या वाले एक बेलन को खोल करके एक आयात बनाया गया है (इसे इसके वक्र पृष्ठ के अनुदिश खोला गया है)। आयात का क्षेत्रफल (cm^2 में) ज्ञात करें। ($\pi = 22/7$ का प्रयोग करें)

Ans
✔ 1. 2200
✘ 2. 2100
✘ 3. 1980
✘ 4. 2400

Question ID : 4410091500676
Option 1 ID : 4410095927616
Option 2 ID : 4410095927615
Option 3 ID : 4410095927614
Option 4 ID : 4410095927617

Q.11 आनंदी ने ₹15,500 में एक मोबाइल फोन खरीदा। उसने इसे 12% लाभ पर बेचा दिया। विक्रय मूल्य (₹ में) ज्ञात कीजिए।

Ans
✔ 1. 17,360
✘ 2. 17,310
✘ 3. 17,320
✘ 4. 17,300

Question ID : 4410091493675
Option 1 ID : 4410095900318
Option 2 ID : 4410095900319
Option 3 ID : 4410095900316
Option 4 ID : 4410095900317

Q.12 A, B और C एक व्यवसाय में क्रमशः ₹60,000, ₹50,000 और ₹40,000 का निवेश करते हैं। A, 10 महीने के लिए, B, 12 महीने के लिए और C, 15 महीने के लिए निवेश करता है। वर्ष के अंत में, अर्जित कुल लाभ ₹3,85,500 है। लाभ में C का हिस्सा ज्ञात कीजिए।

Ans
✘ 1. ₹ 1,31,320
✘ 2. ₹ 1,29,600
✘ 3. ₹ 1,30,500
✔ 4. ₹ 1,28,500

Question ID : 4410091510987
Option 1 ID : 4410095968049
Option 2 ID : 4410095968047
Option 3 ID : 4410095968048
Option 4 ID : 4410095968046

QuickSarkari.com | WhatsApp Channel | Telegram: t.me/quick_sarkari

Q.13 एक वर्गाकार क्षेत्र का क्षेत्रफल, 279 m^2 के बराबर है। इसका परिमाप ज्ञात कीजिए।

Ans
✗ 1. 13√26 m
✓ 2. 12√31 m
✗ 3. 11√26 m
✗ 4. 14√31 m

Question ID : 4410091509553
Option 1 ID : 4410095962874
Option 2 ID : 4410095962873
Option 3 ID : 4410095962872
Option 4 ID : 4410095962875

Q.14 149.25 m और 102 m लंबाई वाली दो रेलगाड़ियाँ समानांतर पटरियों पर विपरीत दिशाओं में क्रमशः 72.9 km/h और 108 km/h की चाल से चल रही हैं। उनके द्वारा एक-दूसरे को पार करने में लगने वाला समय ज्ञात कीजिए।

Ans
✓ 1. 5 सेकंड
✗ 2. 20 सेकंड
✗ 3. 10 सेकंड
✗ 4. 15 सेकंड

Question ID : 4410091493868
Option 1 ID : 4410095901084
Option 2 ID : 4410095901087
Option 3 ID : 4410095901085
Option 4 ID : 4410095901086

Q.15 14.17 और 84 का चतुर्थानुपाती ज्ञात कीजिए।

Ans
✓ 1. 102
✗ 2. 100
✗ 3. 104
✗ 4. 106

Question ID : 4410091482292
Option 1 ID : 4410095856144
Option 2 ID : 4410095856143
Option 3 ID : 4410095856145
Option 4 ID : 4410095856146

QuickSarkari.com | WhatsApp Channel | Telegram: t.me/quick_sarkari

Q.16 एक वाशिंग मशीन का अंकित मूल्य ₹30000 है। इसे एक खुदरा विक्रेता को 40% और 16% की दो क्रमिक छूट पर बेचा जाता है। खुदरा विक्रेता, ग्राहक को 46% की छूट (नए अंकित मूल्य पर) देने के बाद अपने लागत मूल्य पर 30% का लाभ अर्जित करना चाहता है। उसे वाशिंग मशीन पर कितना मूल्य अंकित करना चाहिए?

Ans
✗ 1. ₹36276
✗ 2. ₹36425
✓ 3. ₹36400
✗ 4. ₹36223

Question ID : 4410091915752
Option 1 ID : 4410093617261
Option 2 ID : 4410093617260
Option 3 ID : 4410093617259
Option 4 ID : 4410093617262

Q.17 8 और 18 का माध्यानुपाती ज्ञात कीजिए।

Ans
✗ 1. 8
✗ 2. 14
✗ 3. 16
✓ 4. 12

Question ID : 4410091519101
Option 1 ID : 4410095999674
Option 2 ID : 4410095999676
Option 3 ID : 4410095999677
Option 4 ID : 4410095999675

Q.18 एक समलंब की समांतर भुजाओं की लंबाई 30 cm और 20 cm है। असमांतर भुजाओं की लंबाई 13 cm और 13 cm है। समलंब का क्षेत्रफल ज्ञात कीजिए।

Ans
✗ 1. 320 cm^2
✗ 2. 280 cm^2
✓ 3. 300 cm^2
✗ 4. 310 cm^2

Question ID : 4410091562911
Option 1 ID : 4410096173209
Option 2 ID : 4410096173208
Option 3 ID : 4410096173210
Option 4 ID : 4410096173207

QuickSarkari.com | WhatsApp Channel | Telegram: t.me/quick_sarkari

Q.19 एक साइकिल चालक अपनी यात्रा के पहले 40 km की दूरी 20 km/h की चाल से और अगले 20 km की दूरी 40 km/h की चाल से तय करता है। पूरी यात्रा के लिए औसत चाल ज्ञात कीजिए।

Ans
✗ 1. 28 km/h
✗ 2. 30 km/h
✗ 3. 34 km/h
✓ 4. 24 km/h

Question ID : 4410091535906
Option 1 ID : 4410096066862
Option 2 ID : 4410096066859
Option 3 ID : 4410096066860
Option 4 ID : 4410096066861

Q.20 एक दुकानदार ने ₹75,000 में छह एकसमान मोबाइल फोन खरीदे। उसने इनमें से दो मोबाइल फोन को ₹65,000 में बेच दिया। इन दोनों मोबाइल फोन की बिक्री पर लाभ प्रतिशत ज्ञात कीजिए।

Ans
✗ 1. 161%
✓ 2. 160%
✗ 3. 163%
✗ 4. 158%

Question ID : 4410095777778
Option 1 ID : 4410092266239
Option 2 ID : 4410092266238
Option 3 ID : 4410092266240
Option 4 ID : 4410092266241

Section : English Language and Comprehension

QuickSarkari.com | WhatsApp Channel | Telegram: t.me/quick_sarkari

Q.1 Select the option that can be used as a one word substitute for the underlined words.

The lecturer was a person who criticised cherished beliefs, often questioning cultural norms that others accepted without hesitation.

Ans
✗ 1. Recluse
✗ 2. Epicure
✗ 3. Zealot
✓ 4. Iconoclast

Question ID : 4410091505804
Option 1 ID : 4410095947608
Option 2 ID : 4410095947611
Option 3 ID : 4410095947610
Option 4 ID : 4410095947609

Q.2 Rearrange the segments to form a coherent statement. The first segment (1) is fixed.

(1) The orchestra's performance transcended expectation.
(P) weaving together disparate melodies
(Q) into a tapestry of sound and emotion
(R) beyond mere technical excellence.
(S) each musician contributing their unique voice

Ans
✗ 1. SPQR
✗ 2. PQRS
✓ 3. RSPQ
✗ 4. QRSP

Question ID : 4410091619133
Option 1 ID : 4410096395402
Option 2 ID : 4410096395400
Option 3 ID : 4410096395401
Option 4 ID : 4410096395403

Q.3 Choose the correct option to complete the sentence.

_____ had I closed my eyes _____ the alarm clock began to blare.

Ans
✗ 1. As soon as , while
✓ 2. Hardly , when
✗ 3. Scarcely , before
✗ 4. No sooner , then

Question ID : 4410091483023
Option 1 ID : 4410095859056
Option 2 ID : 4410095859053
Option 3 ID : 4410095859055
Option 4 ID : 4410095859054

QuickSarkari.com | WhatsApp Channel | Telegram: t.me/quick_sarkari

Q.4 In the given question, a statement divided into different segments is given. Rearrange all the segments to form a coherent statement.

(O) True learning / (P) curiosity and persistence. / (Q) not from memorizing facts / (R) arises from / (S) without understanding

Ans
✔ 1. ORPQS
✗ 2. OQPRS
✗ 3. OQRSP
✗ 4. ORSPQ

Question ID : 4410091499095
Option 1 ID : 4410095921279
Option 2 ID : 4410095921278
Option 3 ID : 4410095921280
Option 4 ID : 4410095921281

Q.5 Choose the option that best completes the sentence.

Astronomers kept observing the distant star _____ its light had dimmed unexpectedly. _____ they could determine whether a new planet was passing in front of it.

Ans
✗ 1. because / so that
✗ 2. unless / therefore
✗ 3. as / and
✔ 4. when / and

Question ID : 4410091496834
Option 1 ID : 4410095912482
Option 2 ID : 4410095912485
Option 3 ID : 4410095912483
Option 4 ID : 4410095912484

Q.6 Choose the most appropriate option to complete the sentence.
The teacher appreciated the student's _____ effort in completing the assignment on time.

Ans
✔ 1. diligent
✗ 2. negligible
✗ 3. reckless
✗ 4. casual

Question ID : 4410091618613
Option 1 ID : 4410096393325
Option 2 ID : 4410096393323
Option 3 ID : 4410096393324
Option 4 ID : 4410096393326

QuickSarkari.com | WhatsApp Channel | Telegram: t.me/quick_sarkari

Q.7 In the given question, a statement divided into different segments is given. Rearrange all the segments to form a coherent statement.
Every weekend (O) / in the quiet corner of the library. (P) / lost in a world of stories (Q) / she would spend hours (R) / turning page after page. (S)

Ans
1. OPRQS
2. ORQPS
3. ORPSQ
4. ORSPQ

Question ID : 4410091499213
Option 1 ID : 4410095921752
Option 2 ID : 4410095921751
Option 3 ID : 4410095921750
Option 4 ID : 4410095921753

Q.8 In the given question, a statement divided into different segments is given. Rearrange all the segments to form a coherent statement.

(O) resulting in widening disparities across regions.
(P) the digital literacy initiatives progressed unevenly.
(Q) as several districts reported delays in infrastructure deployment.
(R) which hindered outreach programmes.
(S) and limited access to essential services.

Ans
1. OPSQR
2. PQRSO
3. QOPRS
4. RPSOQ

Question ID : 4410091508054
Option 1 ID : 4410095956848
Option 2 ID : 4410095956846
Option 3 ID : 4410095956845
Option 4 ID : 4410095956847

Q.9 Choose the option that best replaces the underlined words with a single word.

Despite several warnings, he showed a careless lack of concern towards the rules.

Ans
1. negligence
2. diligence
3. obedience
4. vigilance

Question ID : 4410091627520
Option 1 ID : 4410096428366
Option 2 ID : 4410096428365
Option 3 ID : 4410096428367
Option 4 ID : 4410096428368

QuickSarkari.com | WhatsApp Channel | Telegram: t.me/quick_sarkari

Q.10 In the given question, a statement divided into different segments is given. Rearrange all the segments to form a coherent and meaningful statement.

the marathon runner (O) / crossed the finish line (P) / to the cheers of the crowd (Q) / though exhausted and blistered (R) / with an expression of quiet triumph (S)

Ans
✔ 1. OPRQS
✘ 2. OPQRS
✘ 3. OQPRS
✘ 4. ORPSQ

Question ID : 4410091482496
Option 1 ID : 4410095856972
Option 2 ID : 4410095856971
Option 3 ID : 4410095856973
Option 4 ID : 4410095856974

Q.11 Identify the sentence that uses the correct active voice.

Ans
✘ 1. The cake was baked yesterday.
✘ 2. The house is being cleaned now by the maid.
✔ 3. Sarah baked the cake.
✘ 4. The letter was written last week.

Question ID : 4410091484738
Option 1 ID : 4410095865664
Option 2 ID : 4410095865666
Option 3 ID : 4410095865663
Option 4 ID : 4410095865665

Q.12 Choose the option that best replaces the underlined words with a single word.

Her explanation was excessively long and filled with unnecessary details, making it hard to follow.

Ans
✘ 1. redundant
✘ 2. descriptive
✔ 3. verbose
✘ 4. elaborate

Question ID : 4410091627528
Option 1 ID : 4410096428398
Option 2 ID : 4410096428400
Option 3 ID : 4410096428399
Option 4 ID : 4410096428397

QuickSarkari.com | WhatsApp Channel | Telegram: t.me/quick_sarkari

Q.13 Choose the option that best completes the sentence.

Many people continue to use fossil fuels. _____ they are fully aware of the environmental consequences.

Ans
✗ 1. so that
✗ 2. in case
✗ 3. since
✓ 4. though

Question ID : 4410091496675
Option 1 ID : 4410095911971
Option 2 ID : 4410095911972
Option 3 ID : 4410095911970
Option 4 ID : 4410095911969

Q.14 Complete the sentence with the most suitable pair of adjectives.

Despite his _____ appearance, the scientist's ideas were remarkably _____ and ahead of his time.

Ans
✗ 1. flamboyant, outdated
✓ 2. modest, revolutionary
✗ 3. dull, insignificant
✗ 4. impressive, ordinary

Question ID : 4410091483243
Option 1 ID : 4410095859897
Option 2 ID : 4410095859896
Option 3 ID : 4410095859898
Option 4 ID : 4410095859895

Q.15 Select the correct one-word substitute for the given expression.

A person who enjoys causing pain or suffering to others

Ans
✗ 1. Masochist
✓ 2. Sadist
✗ 3. Optimist
✗ 4. Misogynist

Question ID : 4410091484363
Option 1 ID : 4410095864362
Option 2 ID : 4410095864361
Option 3 ID : 4410095864364
Option 4 ID : 4410095864363

QuickSarkari.com | WhatsApp Channel | Telegram: t.me/quick_sarkari

Q.16 Rearrange the following segments to form a coherent statement.

O. the ancient temple stood atop the hill
P. attracting pilgrims from distant villages
Q. surrounded by dense, misty forests
R. and its bells tolled softly with the morning breeze
S. its stone walls weathered by centuries of rain and sun

Ans
✔ 1. O, S, Q, R, P
✘ 2. O, S, R, Q, P
✘ 3. O, Q, P, S, R
✘ 4. Q, O, P, R, S

Question ID : 4410091602069
Option 1 ID : 4410096327871
Option 2 ID : 4410096327870
Option 3 ID : 4410096327872
Option 4 ID : 4410096327873

Q.17 Choose the most suitable one-word substitution for the phrase.

A person who looks at the bright side of things.

Ans
✘ 1. Opportunist
✘ 2. Idealist
✘ 3. Realist
✔ 4. Optimist

Question ID : 4410091482428
Option 1 ID : 4410095856697
Option 2 ID : 4410095856698
Option 3 ID : 4410095856695
Option 4 ID : 4410095856696

Q.18 Select the correct one-word substitute for the given expression.

A person who takes great pleasure in fine food and drink

Ans
✔ 1. Epicure
✘ 2. Chef
✘ 3. Herbivore
✘ 4. Glutton

Question ID : 4410091484237
Option 1 ID : 4410095863845
Option 2 ID : 4410095863846
Option 3 ID : 4410095863847
Option 4 ID : 4410095863848

QuickSarkari.com | WhatsApp Channel | Telegram: t.me/quick_sarkari

Q.19 Choose the option that best substitutes the underlined expression with one word.

The speaker spoke <u>without proper thought or preparation</u> during the debate.

Ans
✗ 1. confidently
✓ 2. impulsively
✗ 3. logically
✗ 4. fluently

Question ID : 4410091627518
Option 1 ID : 4410096428359
Option 2 ID : 4410096428358
Option 3 ID : 4410096428360
Option 4 ID : 4410096428357

Q.20 Choose the option that best completes the sentence.

The team's _____ spirit and _____ attitude towards defeat earned them respect even in loss.

Ans
✓ 1. indomitable / graceful
✗ 2. weak / arrogant
✗ 3. casual / careless
✗ 4. reckless / impatient

Question ID : 4410091496399
Option 1 ID : 4410095910878
Option 2 ID : 4410095910877
Option 3 ID : 4410095910879
Option 4 ID : 4410095910880

Section : English Language and Comprehension1

Q.1 Choose the option that corrects the spelling error in the following sentence.
The soldier pledged his alleigence to the nation during the ceremony.

Ans
✗ 1. soldeir
✓ 2. allegiance
✗ 3. nateon
✗ 4. cerimony

Question ID : 4410091487284
Option 1 ID : 4410095875547
Option 2 ID : 4410095875548
Option 3 ID : 4410095875549
Option 4 ID : 4410095875550

QuickSarkari.com | WhatsApp Channel | Telegram: t.me/quick_sarkari

Q.2 Identify the misspelt word.

Ans
✗ 1. Compliance
✓ 2. Millenium
✗ 3. Embarrassment
✗ 4. Questionnaire

Question ID : 4410091487250
Option 1 ID : 4410095875411
Option 2 ID : 4410095875413
Option 3 ID : 4410095875412
Option 4 ID : 4410095875414

Q.3 Choose the sentence that is in the passive voice.

Ans
✓ 1. She was attacked by a dangerous dog.
✗ 2. Raju gave Raman a book for his birthday.
✗ 3. Sheela sent Sudha a cheque for a thousand dollars.
✗ 4. They called off the excursion trip.

Question ID : 4410091484873
Option 1 ID : 4410095865976
Option 2 ID : 4410095865975
Option 3 ID : 4410095865974
Option 4 ID : 4410095865973

Q.4 Select the INCORRECTLY spelt word in the given sentence.

Despite his perseverence and dedication, the committee questioned his professionalism and efficacy.

Ans
✓ 1. perseverence
✗ 2. persistence
✗ 3. professionalism
✗ 4. efficacy

Question ID : 4410091643010
Option 1 ID : 4410096488923
Option 2 ID : 4410096488926
Option 3 ID : 4410096488924
Option 4 ID : 4410096488925

QuickSarkari.com | WhatsApp Channel | Telegram: t.me/quick_sarkari

Q.5 Identify the misspelt word in the following sentence.
Participation in extracurricular activites is encouraged.

Ans
✔ 1. activites
✘ 2. extracurricular
✘ 3. Participation
✘ 4. encouraged

Question ID : 4410091643303
Option 1 ID : 4410096489902
Option 2 ID : 4410096489905
Option 3 ID : 4410096489903
Option 4 ID : 4410096489904

Q.6 Rectify the sentence by selecting the correct spelling from the options.

The professor's elaborative discource on the theory of quantum mechanics was both illuminating and perplexing for the students.

Ans
✔ 1. discourse
✘ 2. discorse
✘ 3. dicsource
✘ 4. discousre

Question ID : 44100976609
Option 1 ID : 441009304625
Option 2 ID : 441009304626
Option 3 ID : 441009304627
Option 4 ID : 441009304628

Q.7 Which of the following sentences correctly uses the Future Perfect Continuous Tense?

Ans
✘ 1. By next June, they will have completed the bridge for two years.
✘ 2. By next June, they are constructing the bridge for two years.
✘ 3. By next June, they will complete the construction of the bridge.
✔ 4. By next June, they will have been constructing the bridge for two years.

Question ID : 4410091483295
Option 1 ID : 4410095860102
Option 2 ID : 4410095860101
Option 3 ID : 4410095860099
Option 4 ID : 4410095860100

QuickSarkari.com | WhatsApp Channel | Telegram: t.me/quick_sarkari

Q.8 Complete the sentence correctly by choosing the appropriate option
She said. "I _____ to the new office tomorrow."

Ans
✗ 1. went
✓ 2. am going
✗ 3. will go
✗ 4. go

Question ID : 4410091619034
Option 1 ID : 4410096395010
Option 2 ID : 4410096395008
Option 3 ID : 4410096395009
Option 4 ID : 4410096395011

Q.9 Which of the following sentences correctly uses the Present Perfect Continuous Tense?

Ans
✗ 1. She is working on the project since morning.
✗ 2. She works on the project since morning.
✓ 3. She has been working on the project since morning.
✗ 4. She has worked on the project since morning.

Question ID : 4410091483312
Option 1 ID : 4410095860164
Option 2 ID : 4410095860163
Option 3 ID : 4410095860166
Option 4 ID : 4410095860165

Q.10 Choose the sentence that uses the correct indirect speech.

Ans
✗ 1. My mother asked me that if I was feeling better that morning.
✗ 2. Sarah asked her friend if he will join the club the next week.
✓ 3. He inquired whether the bus would arrive at the station the following hour.
✗ 4. The teacher asked the students if they have finished the test the previous day.

Question ID : 4410091484935
Option 1 ID : 4410095866223
Option 2 ID : 4410095866224
Option 3 ID : 4410095866222
Option 4 ID : 4410095866221

QuickSarkari.com | WhatsApp Channel | Telegram: t.me/quick_sarkari

Comprehension:

Read the passage and answer the questions that follow.
As Hallee McCoombes approaches the finish line of the 800-metre run for kids with a disability, the crowd is cheering wildly and chanting her name. The 10-year-old para-athlete had spent months preparing for the 2022 School Sport Australia Track & Field Championships in Brisbane. Now she has the hyper-focussed expression that has become her trademark: anyone who has seen her compete knows that nothing will stop her now.
Hallee was born with spina bifida, a neural-tube defect that affects how the spine and spinal cord form in the womb. Her mother, Christine McCoombes, 38, shudders when she recalls learning about Hallee's diagnosis. The doctors weren't sure about her brain function because she had hydrocephalus and didn't know how well she would function physically or mentally." It's no wonder that, regardless of how many times Hallee's parents watch their determined daughter compete, their hearts burst with pride.

SubQuestion No : 11

Q.11 Select the title that best reflects Hallee's spirit and perseverance.

Ans
✗ 1. Champion in Waiting

✗ 2. The Miracle of Brisbane

✓ 3. Born to Run

✗ 4. The Race That Changed Everything

Question ID : 4410091485162
Option 1 ID : 4410095867119
Option 2 ID : 4410095867117
Option 3 ID : 4410095867118
Option 4 ID : 4410095867120

QuickSarkari.com | WhatsApp Channel | Telegram: t.me/quick_sarkari

Comprehension:

Read the passage and answer the questions that follow.

As Hallee McCoombes approaches the finish line of the 800-metre run for kids with a disability, the crowd is cheering wildly and chanting her name. The 10-year-old para-athlete had spent months preparing for the 2022 School Sport Australia Track & Field Championships in Brisbane. Now she has the hyper-focussed expression that has become her trademark: anyone who has seen her compete knows that nothing will stop her now.

Hallee was born with spina bifida, a neural-tube defect that affects how the spine and spinal cord form in the womb. Her mother, Christine McCoombes, 38, shudders when she recalls learning about Hallee's diagnosis. The doctors weren't sure about her brain function because she had hydrocephalus and didn't know how well she would function physically or mentally." It's no wonder that, regardless of how many times Hallee's parents watch their determined daughter compete, their hearts burst with pride.

SubQuestion No : 12

Q.12 The main theme of the passage is—

Ans
✔ 1. Courage and determination in overcoming adversity

✗ 2. Limitations of physical disabilities

✗ 3. The medical condition of spina bifida

✗ 4. The challenges of sports training

Question ID : 4410091485163
Option 1 ID : 4410095867123
Option 2 ID : 4410095867121
Option 3 ID : 4410095867122
Option 4 ID : 4410095867124

QuickSarkari.com | WhatsApp Channel | Telegram: t.me/quick_sarkari

Comprehension:

Read the passage and answer the questions that follow.

As Hallee McCoombes approaches the finish line of the 800-metre run for kids with a disability, the crowd is cheering wildly and chanting her name. The 10-year-old para-athlete had spent months preparing for the 2022 School Sport Australia Track & Field Championships in Brisbane. Now she has the hyper-focussed expression that has become her trademark: anyone who has seen her compete knows that nothing will stop her now.

Hallee was born with spina bifida, a neural-tube defect that affects how the spine and spinal cord form in the womb. Her mother, Christine McCoombes, 38, shudders when she recalls learning about Hallee's diagnosis. The doctors weren't sure about her brain function because she had hydrocephalus and didn't know how well she would function physically or mentally." It's no wonder that, regardless of how many times Hallee's parents watch their determined daughter compete, their hearts burst with pride.

SubQuestion No : 13

Q.13 Choose the factual statement that is explicitly supported by the passage.

Ans
✗ 1. Hallee's diagnosis was confirmed when she was ten years old.

✗ 2. The 2022 School Sport Australia Championships took place in Sydney.

✗ 3. Hallee's family discouraged her from pursuing athletics.

✓ 4. Hallee was born with a condition known as spina bifida.

Question ID : 4410091485164
Option 1 ID : 4410095867127
Option 2 ID : 4410095867125
Option 3 ID : 4410095867128
Option 4 ID : 4410095867126

QuickSarkari.com | WhatsApp Channel | Telegram: t.me/quick_sarkari

Comprehension:

Read the passage and answer the questions that follow.

As Hallee McCoombes approaches the finish line of the 800-metre run for kids with a disability, the crowd is cheering wildly and chanting her name. The 10-year-old para-athlete had spent months preparing for the 2022 School Sport Australia Track & Field Championships in Brisbane. Now she has the hyper-focussed expression that has become her trademark: anyone who has seen her compete knows that nothing will stop her now.

Hallee was born with spina bifida, a neural-tube defect that affects how the spine and spinal cord form in the womb. Her mother, Christine McCoombes, 38, shudders when she recalls learning about Hallee's diagnosis. The doctors weren't sure about her brain function because she had hydrocephalus and didn't know how well she would function physically or mentally." It's no wonder that, regardless of how many times Hallee's parents watch their determined daughter compete, their hearts burst with pride.

SubQuestion No : 14

Q.14 Determine how the author organizes the ideas within the passage.

Ans
✗ 1. Instructional essay on rehabilitation techniques.

✗ 2. First-person account focusing on personal medical experience.

✓ 3. Third-person narrative describing emotional and physical triumph.

✗ 4. Persuasive argument promoting disability awareness.

Question ID : 4410091485165
Option 1 ID : 4410095867131
Option 2 ID : 4410095867130
Option 3 ID : 4410095867129
Option 4 ID : 4410095867132

QuickSarkari

Comprehension:

Read the passage and answer the questions that follow.

As Hallee McCoombes approaches the finish line of the 800-metre run for kids with a disability, the crowd is cheering wildly and chanting her name. The 10-year-old para-athlete had spent months preparing for the 2022 School Sport Australia Track & Field Championships in Brisbane. Now she has the hyper-focussed expression that has become her trademark: anyone who has seen her compete knows that nothing will stop her now.

Hallee was born with spina bifida, a neural-tube defect that affects how the spine and spinal cord form in the womb. Her mother, Christine McCoombes, 38, shudders when she recalls learning about Hallee's diagnosis. The doctors weren't sure about her brain function because she had hydrocephalus and didn't know how well she would function physically or mentally." It's no wonder that, regardless of how many times Hallee's parents watch their determined daughter compete, their hearts burst with pride.

SubQuestion No : 15

Q.15 Choose the option that is the antonym of recall.

Ans
✔ 1. Forget
✗ 2. Recollect
✗ 3. Retain
✗ 4. Remember

Question ID : 4410091514980
Option 1 ID : 4410095983342
Option 2 ID : 4410095983341
Option 3 ID : 4410095983343
Option 4 ID : 4410095983340

QuickSarkari.com | WhatsApp Channel | Telegram: t.me/quick_sarkari

Comprehension:

Read the given passage and answer the questions that follow.

Cooking, once regarded merely as a domestic necessity, has evolved into an expressive and intellectual pursuit that transcends the kitchen. For many, it is not simply about sustenance but about creativity and mindfulness — a means to explore cultures, experiment with ingredients, and challenge one's senses. The rhythmic chopping of vegetables, the gradual transformation of raw elements into harmonious flavours, and the anticipation that fills the air evoke both art and science. Behind every dish lies a story — of heritage, adaptation, and passion. Modern culinary practices, though aided by technology, still draw their essence from patience and intuition. Recipes may guide, but it is the instinct of the cook that gives life to the meal. Whether one follows tradition or innovation, cooking remains an intimate dialogue between the creator and the creation — a process that nourishes not just the body but the imagination and spirit as well.

SubQuestion No : 16

Q.16 What is the central idea conveyed in the passage?

Ans

✗ 1. Cooking is a technical process guided strictly by recipes.

✗ 2. Cooking is a laborious domestic duty essential for survival.

✗ 3. Cooking is an industrial craft defined by technological precision.

✓ 4. Cooking is a fusion of creativity, mindfulness, and cultural expression.

Question ID : 4410091483121
Option 1 ID : 4410095859430
Option 2 ID : 4410095859431
Option 3 ID : 4410095859432
Option 4 ID : 4410095859429

QuickSarkari

Comprehension:

Read the given passage and answer the questions that follow.

Cooking, once regarded merely as a domestic necessity, has evolved into an expressive and intellectual pursuit that transcends the kitchen. For many, it is not simply about sustenance but about creativity and mindfulness — a means to explore cultures, experiment with ingredients, and challenge one's senses. The rhythmic chopping of vegetables, the gradual transformation of raw elements into harmonious flavours, and the anticipation that fills the air evoke both art and science. Behind every dish lies a story — of heritage, adaptation, and passion. Modern culinary practices, though aided by technology, still draw their essence from patience and intuition. Recipes may guide, but it is the instinct of the cook that gives life to the meal. Whether one follows tradition or innovation, cooking remains an intimate dialogue between the creator and the creation — a process that nourishes not just the body but the imagination and spirit as well.

SubQuestion No : 17

Q.17 Which title best captures the essence of the passage?

Ans
✗ 1. The Science of Ingredients

✓ 2. The Art Beyond Recipes

✗ 3. The Kitchen Revolution

✗ 4. The Global Taste Palette

Question ID : 4410091483122
Option 1 ID : 4410095859435
Option 2 ID : 4410095859436
Option 3 ID : 4410095859433
Option 4 ID : 4410095859434

QuickSarkari.com | WhatsApp Channel | Telegram: t.me/quick_sarkari

Comprehension:

Read the given passage and answer the questions that follow.

Cooking, once regarded merely as a domestic necessity, has evolved into an expressive and intellectual pursuit that transcends the kitchen. For many, it is not simply about sustenance but about creativity and mindfulness — a means to explore cultures, experiment with ingredients, and challenge one's senses. The rhythmic chopping of vegetables, the gradual transformation of raw elements into harmonious flavours, and the anticipation that fills the air evoke both art and science. Behind every dish lies a story — of heritage, adaptation, and passion. Modern culinary practices, though aided by technology, still draw their essence from patience and intuition. Recipes may guide, but it is the instinct of the cook that gives life to the meal. Whether one follows tradition or innovation, cooking remains an intimate dialogue between the creator and the creation — a process that nourishes not just the body but the imagination and spirit as well.

SubQuestion No : 18

Q.18 What is the tone of the passage?

Ans
✗ 1. Humorous

✓ 2. Reflective

✗ 3. Pessimistic

✗ 4. Sarcastic

Question ID : 4410091483123
Option 1 ID : 4410095859437
Option 2 ID : 4410095859438
Option 3 ID : 4410095859440
Option 4 ID : 4410095859439

QuickSarkari.com | WhatsApp Channel | Telegram: t.me/quick_sarkari

Comprehension:

Read the given passage and answer the questions that follow.

Cooking, once regarded merely as a domestic necessity, has evolved into an expressive and intellectual pursuit that transcends the kitchen. For many, it is not simply about sustenance but about creativity and mindfulness — a means to explore cultures, experiment with ingredients, and challenge one's senses. The rhythmic chopping of vegetables, the gradual transformation of raw elements into harmonious flavours, and the anticipation that fills the air evoke both art and science. Behind every dish lies a story — of heritage, adaptation, and passion. Modern culinary practices, though aided by technology, still draw their essence from patience and intuition. Recipes may guide, but it is the instinct of the cook that gives life to the meal. Whether one follows tradition or innovation, cooking remains an intimate dialogue between the creator and the creation — a process that nourishes not just the body but the imagination and spirit as well.

SubQuestion No : 19

Q.19 What can be inferred about the author's perception of modern cooking?

Ans
✗ 1. It has lost its traditional essence due to rapid modernization.

✓ 2. It combines innovation with the timeless values of patience and intuition.

✗ 3. It relies on precise measurements more than personal instinct.

✗ 4. It depends entirely on technological efficiency and digital guidance.

Question ID : 4410091483124
Option 1 ID : 4410095859442
Option 2 ID : 4410095859443
Option 3 ID : 4410095859444
Option 4 ID : 4410095859441

QuickSarkari.com | WhatsApp Channel | Telegram: t.me/quick_sarkari

Comprehension:

Read the given passage and answer the questions that follow.

Cooking, once regarded merely as a domestic necessity, has evolved into an expressive and intellectual pursuit that transcends the kitchen. For many, it is not simply about sustenance but about creativity and mindfulness — a means to explore cultures, experiment with ingredients, and challenge one's senses. The rhythmic chopping of vegetables, the gradual transformation of raw elements into harmonious flavours, and the anticipation that fills the air evoke both art and science. Behind every dish lies a story — of heritage, adaptation, and passion. Modern culinary practices, though aided by technology, still draw their essence from patience and intuition. Recipes may guide, but it is the instinct of the cook that gives life to the meal. Whether one follows tradition or innovation, cooking remains an intimate dialogue between the creator and the creation — a process that nourishes not just the body but the imagination and spirit as well.

SubQuestion No : 20

Q.20 Which of the following statements is directly supported by the passage?

Ans
✗ 1. Technology has completely replaced traditional cooking methods.

✗ 2. Culinary expression excludes personal creativity and emotion.

✓ 3. Cooking nourishes both the imagination and the human spirit.

✗ 4. Every cook must strictly follow recipes to succeed.

Question ID : 4410091483126
Option 1 ID : 4410095859449
Option 2 ID : 4410095859451
Option 3 ID : 4410095859452
Option 4 ID : 4410095859450

Section : Hindi Language and Comprehension

Q.1 दिए गए विकल्पों में से उचित कारक द्वारा वाक्य पूर्ण करें।
मेरे _____गीत बजाया गया।

Ans
✗ 1. से

✗ 2. ने

✗ 3. को

✓ 4. द्वारा

Question ID : 4410093539888
Option 1 ID : 4410091382192
Option 2 ID : 4410091382194
Option 3 ID : 4410091382193
Option 4 ID : 4410091382195

QuickSarkari.com | WhatsApp Channel | Telegram: t.me/quick_sarkari

Q.2 रिक्त स्थान के लिए उपयुक्त कारक का चयन दिए गए विकल्पों में से करें-
विकास..... भी उपवास रखा था।

Ans
✗ 1. से
✗ 2. में
✗ 3. को
✓ 4. ने

Question ID : 4410092054 52
Option 1 ID : 4410098080 10
Option 2 ID : 4410098080 13
Option 3 ID : 4410098080 11
Option 4 ID : 4410098080 12

Q.3 दिए गए वाक्य में उचित कारक का चयन करके रिक्त स्थान की पूर्ति करें -
इंद्रावती राष्ट्रीय उद्यान भारत के छत्तीसगढ़ राज्य के बीजापुर ज़िले ----------स्थित एक राष्ट्रीय उद्यान है।

Ans
✗ 1. से
✓ 2. में
✗ 3. ने
✗ 4. को

Question ID : 4410091528814
Option 1 ID : 4410096038395
Option 2 ID : 4410096038398
Option 3 ID : 4410096038397
Option 4 ID : 4410096038396

Q.4 'बिल्ली के गले में घंटी बाँधना ' लोकोक्ति का एक उचित अर्थ कौन सा है?

Ans
✗ 1. उपयोगिता का महत्त्व होता है।
✓ 2. जोखिम भरा काम।
✗ 3. जान बचाकर भागना ।
✗ 4. समझदारी से काम करना।

Question ID : 4410092355 99
Option 1 ID : 4410099208 25
Option 2 ID : 4410099208 26
Option 3 ID : 4410099208 23
Option 4 ID : 4410099208 24

QuickSarkari.com | WhatsApp Channel | Telegram: t.me/quick_sarkari

Q.5 **वाक्यांश के लिए सार्थक शब्द चुनें-**

जो कम जानता हो -

Ans ✔ 1. अल्पज्ञ

✗ 2. अल्प

✗ 3. अवध्य

✗ 4. अज्ञानी

Question ID : 4410092764 21
Option 1 ID : 4410091073811
Option 2 ID : 4410091073810
Option 3 ID : 4410091073812
Option 4 ID : 4410091073809

Q.6 **'कंगाली में आटा गीला' लोकोक्ति का सही अर्थ है-**

Ans ✔ 1. विपत्ति पर विपत्ति आना

✗ 2. निर्धन में विनम्रता होती है

✗ 3. शुभ कार्य होना

✗ 4. अत्यधिक परिश्रम के बाद साधारण लाभ

Question ID : 4410091529799
Option 1 ID : 4410096042287
Option 2 ID : 4410096042289
Option 3 ID : 4410096042288
Option 4 ID : 4410096042290

Q.7 **नीचे दी गयी लोकोक्ति का सही अर्थ चुनें-**
'आँसू एक नहीं कलेजा टूक-टूक' 3049

Ans ✗ 1. कभी कभी दुःखी होना

✔ 2. रोने का दिखावा करना

✗ 3. सच में दुःखी होना

✗ 4. हँसना

Question ID : 4410094433 29
Option 1 ID : 4410091732000
Option 2 ID : 4410091731997
Option 3 ID : 4410091731999
Option 4 ID : 4410091731998

QuickSarkari.com | WhatsApp Channel | Telegram: t.me/quick_sarkari

Q.8 **निम्नलिखित वाक्य को क्रम में लिखें।**
शारीरिक अधिक अच्छा होता बल से बुद्धि का बल है।428

Ans
✔ 1. शारीरिक बल से बुद्धि का बल अधिक अच्छा होता है।
✘ 2. बल से बुद्धि शारीरिक का बल अधिक अच्छा होता है।
✘ 3. अधिक अच्छा होता शारीरिक बुद्धि बल से का बल है।
✘ 4. बल से बुद्धि का होता है बल अधिक शारीरिक अच्छा ।

Question ID : 4410091051262
Option 1 ID : 4410094154117
Option 2 ID : 4410094154120
Option 3 ID : 4410094154118
Option 4 ID : 4410094154119

Q.9 **प्रस्तुत वाक्यांश के लिए सार्थक शब्द का चयन करें -**
जिसमें कुछ करने की क्षमता न हो 5121

Ans
✘ 1. अक्षधूर्त
✔ 2. अक्षम
✘ 3. अक्षम्य
✘ 4. अक्षय

Question ID : 4410094768 76
Option 1 ID : 4410091862920
Option 2 ID : 4410091862917
Option 3 ID : 4410091862918
Option 4 ID : 4410091862919

Q.10 **'गूलर का फूल होना' मुहावरे का सही अर्थ है-**

Ans
✘ 1. प्रसिद्ध होना
✔ 2. असंभव बात
✘ 3. कोमल होना
✘ 4. बहुत विद्वान होना

Question ID : 4410091529746
Option 1 ID : 4410096042070
Option 2 ID : 4410096042068
Option 3 ID : 4410096042067
Option 4 ID : 4410096042069

QuickSarkari.com | WhatsApp Channel | Telegram: t.me/quick_sarkari

Q.11 उपयुक्त 'क्रिया' का चयन कर रिक्त स्थान की पूर्ति कीजिए।
' सुखमनी अपने पति को चिट्ठियाँ .....रही है। '

Ans
✗ 1. पिसवा
✗ 2. उड़वा
✗ 3. चलवा
✓ 4. लिखवा

Question ID : 4410009395040
Option 1 ID : 4410091545671
Option 2 ID : 4410091545670
Option 3 ID : 4410091545669
Option 4 ID : 4410091545668

Q.12 दिए गए विकल्पों में से उचित कारक द्वारा वाक्य पूर्ण करें।
घड़ी मेज ____ रखी है।

Ans
✗ 1. को
✗ 2. में
✗ 3. से
✓ 4. पर

Question ID : 4410009353984
Option 1 ID : 4410091382178
Option 2 ID : 4410091382176
Option 3 ID : 4410091382177
Option 4 ID : 4410091382179

Q.13 निम्नलिखित वाक्यांश के लिए सार्थक शब्द है -

किसी के पास रखी हुई दूसरे की संपत्ति

Ans
✗ 1. अधिकारी
✗ 2. उच्छिष्ट
✗ 3. ऋणी
✓ 4. न्यास

Question ID : 4410009287217
Option 1 ID : 4410091115813
Option 2 ID : 4410091115815
Option 3 ID : 4410091115814
Option 4 ID : 4410091115812

QuickSarkari.com | WhatsApp Channel | Telegram: t.me/quick_sarkari

Q.14 **निम्नलिखित में से 'रास्ता देखना' मुहावरे का उचित अर्थ होगा ?**

Ans
✗ 1. दूसरों का अनुसरण करना
✓ 2. प्रतीक्षा करना
✗ 3. रास्ता बनाना
✗ 4. रास्ता भूल जाना

Question ID : 4410091499734
Option 1 ID : 4410095923829
Option 2 ID : 4410095923826
Option 3 ID : 4410095923827
Option 4 ID : 4410095923828

Q.15 **'वह कुल्हाड़ी ..... वृक्ष काटता है' उचित विभक्ति चिह्न का प्रयोग कीजिये-**

Ans
✗ 1. का
✗ 2. में
✓ 3. से
✗ 4. के लिए

Question ID : 4410009354009
Option 1 ID : 4410091382279
Option 2 ID : 4410091382277
Option 3 ID : 4410091382276
Option 4 ID : 4410091382278

Q.16 **लोकोक्ति के सही अर्थ का चयन करें-**
'एक तवे की रोटी. क्या छोटी क्या मोटी'

Ans
✗ 1. तवे पर छोटी और मोटी रोटी सेकना
✓ 2. कोई भेदभाव नहीं है
✗ 3. अपनी बात से पलट जाना
✗ 4. एक जैसे दुर्गुण वाले

Question ID : 4410009291101
Option 1 ID : 4410091131261
Option 2 ID : 4410091131258
Option 3 ID : 4410091131260
Option 4 ID : 4410091131259

QuickSarkari.com | WhatsApp Channel | Telegram: t.me/quick_sarkari

Q.17 सर्वोचित क्रिया शब्द से वाक्य का रिक्त स्थान पूर्ण करें-
मौसम सुहावना है ठंडी हवा ..... है।

Ans
✗ 1. हो रही
✗ 2. पड़ रही
✗ 3. दिख रही
✓ 4. चल रही

Question ID : 4410009466296
Option 1 ID : 4410091823929
Option 2 ID : 4410091823931
Option 3 ID : 4410091823930
Option 4 ID : 4410091823932

Q.18 'जो दिए जाने योग्य न हो' वाक्यांश के लिए सार्थक शब्द है-5100

Ans
✗ 1. अंतरिक्ष
✗ 2. अचेतन
✓ 3. अदेय
✗ 4. अनन्य

Question ID : 4410009476855
Option 1 ID : 4410091862835
Option 2 ID : 4410091862834
Option 3 ID : 4410091862836
Option 4 ID : 4410091862833

Q.19 'शत्रुओं को मार डालने वाला' वाक्यांश के लिए सार्थक शब्द होगा -

Ans
✗ 1. धनञ्जय
✗ 2. मृत्युंजय
✗ 3. शत्रुंजय
✓ 4. शत्रुघ्न

Question ID : 4410009393227
Option 1 ID : 4410091538408
Option 2 ID : 4410091538405
Option 3 ID : 4410091538406
Option 4 ID : 4410091538407

QuickSarkari.com | WhatsApp Channel | Telegram: t.me/quick_sarkari

Q.20 निम्नलिखित अव्यवस्थित क्रम वाले वाक्य खण्डों को क.ख.ग.घ की संज्ञा दी गई है। इन्हें ध्यान से पढ़कर.दिए गए विकल्पों में से उचित वाक्य क्रम वाला विकल्प चुनिए –
क - के लिए आवश्यक है
ख - हमें आस-पास के क्षेत्र को स्वच्छ रखना चाहिए
ग - क्योंकि स्वच्छता न केवल स्वस्थ जीवन
घ – बल्कि समाज की सुंदरता के लिए भी महत्वपूर्ण है

Ans
✗ 1. ग ख क घ
✓ 2. ख ग क घ
✗ 3. घ ग ख क
✗ 4. क ग ख घ

Question ID : 4410091563281
Option 1 ID : 4410091563278
Option 2 ID : 4410091563280
Option 3 ID : 4410091563279
Option 4 ID : 4410091563279

Section : Hindi Language and Comprehension1

Q.1 निम्नलिखित वाक्य के रेखांकित शब्द का विलोम बताएं -
'मुझे पैसों की <u>आवश्यकता</u> है।'

Ans
✗ 1. आग्रह
✗ 2. अवश्य
✓ 3. अनावश्यकता
✗ 4. जरूरत

Question ID : 4410091515922
Option 1 ID : 4410095987056
Option 2 ID : 4410095987054
Option 3 ID : 4410095987055
Option 4 ID : 4410095987053

QuickSarkari.com | WhatsApp Channel | Telegram: t.me/quick_sarkari

Q.2

दिये गए वाक्य के रेखांकित शब्द का पर्यायवाची शब्द चुनिए –

<u>गंगा</u> नदी भारतीय सभ्यता की रीढ़ मानी जाती है।

Ans

✔ 1. सुरसरि

✗ 2. सरिता

✗ 3. कामिनी

✗ 4. कालिंदी

Question ID : 4410091530736
Option 1 ID : 4410096046029
Option 2 ID : 4410096046027
Option 3 ID : 4410096046028
Option 4 ID : 4410096046030

Q.3 **निम्नलिखित में से किस वाक्य में 'यश' शब्द के पर्याय का प्रयोग नहीं हुआ है?**

Ans

✗ 1. उसने अपनी मेहनत से बड़ी ख्याति प्राप्त की।

✗ 2. उसकी शोहरत पूरे शहर में फैल गई।

✔ 3. वह चुपचाप बिना किसी पहचान के जीवन जीता है।

✗ 4. उसके नाम का डंका दूर-दूर तक बजता है।

Question ID : 4410091499962
Option 1 ID : 4410095924742
Option 2 ID : 4410095924744
Option 3 ID : 4410095924745
Option 4 ID : 4410095924743

Q.4 **निम्नलिखित वाक्य के किस शब्द में वर्तनी से संबंधित त्रुटि है?**
'डाकूयों की टोली कल रात इधर से ही गुजरी थी।

Ans

✗ 1. टोली

✗ 2. रात

✔ 3. डाकूयों

✗ 4. गुजरी

Question ID : 4410091511500
Option 1 ID : 4410095970058
Option 2 ID : 4410095970059
Option 3 ID : 4410095970057
Option 4 ID : 4410095970060

QuickSarkari.com | WhatsApp Channel | Telegram: t.me/quick_sarkari

Q.5 निम्नलिखित वाक्य में 'स्वल्प' के लिए उचित विलोम शब्द की पूर्ति कीजिए-
विद्यार्थी को स्वल्प समय में _____कार्य पूरा करना चाहिए।

Ans
✗ 1. सीमित
✗ 2. थोड़ा
✓ 3. अत्यधिक
✗ 4. न्यून

Question ID : 4410091498194
Option 1 ID : 4410095917804
Option 2 ID : 4410095917803
Option 3 ID : 4410095917805
Option 4 ID : 4410095917802

Q.6 निम्नलिखित वाक्य के रेखांकित शब्द का पर्यायवाची कौन-सा नहीं है?
'सांसारिक मोह माया का त्याग करो।'

Ans
✓ 1. संयोग
✗ 2. प्रपंच
✗ 3. धोखा
✗ 4. छल

Question ID : 4410091515625
Option 1 ID : 4410095985905
Option 2 ID : 4410095985906
Option 3 ID : 4410095985904
Option 4 ID : 4410095985903

Q.7 निम्नलिखित विकल्पों में से कौन-से वाक्य में वर्तनी से संबंधित त्रुटि नहीं हैं?

Ans
✗ 1. मोहन की आँखों से आंसू वह रहे थे।
✗ 2. मोहन की आंखों से आँसू बह रहे थे।
✓ 3. मोहन की आँखों से आँसू बह रहे थे।
✗ 4. मोहन की आंखों से आंसू बह रहे थे।

Question ID : 4410091511467
Option 1 ID : 4410095969916
Option 2 ID : 4410095969914
Option 3 ID : 4410095969915
Option 4 ID : 4410095969913

QuickSarkari.com | WhatsApp Channel | Telegram: t.me/quick_sarkari

Q.8 **निम्नलिखित में से किस एक वाक्य में वर्तनी की अशुद्धि है?**

Ans
✗ 1. उसने अपने गुरु के चरणों में शीश नवाया।
✗ 2. भक्त संत के दर्शन के लिए दर्शनाभिलाषी थे।
✓ 3. सूरज का द्रश्य बहुत मनमोहक था।
✗ 4. जीवन में खुश रहना आवश्यक है।

Question ID : 4410091499778
Option 1 ID : 4410095924003
Option 2 ID : 4410095924002
Option 3 ID : 4410095924004
Option 4 ID : 4410095924005

Q.9 **दिये गए वाक्य के रेखांकित शब्द का विलोम शब्द चुनिए –**

भारतीय साहित्य में कालिदास का स्थान उनके <u>प्रख्यात</u> काव्य-कौशल के कारण अद्वितीय है।

Ans
✓ 1. कुख्यात
✗ 2. प्रसिद्ध
✗ 3. विख्यात
✗ 4. मशहूर

Question ID : 4410091530967
Option 1 ID : 4410096046941
Option 2 ID : 4410096046942
Option 3 ID : 4410096046939
Option 4 ID : 4410096046940

Q.10 **दिये गये वाक्य के किस भाग में त्रुटि है?**

वैज्ञानिकों में तथ्यों का तर्क -वितर्क सहित अवलोकन करने की छमता होनी चाहिए।

Ans
✗ 1. अवलोकन करने की
✓ 2. छमता होनी चाहिए।
✗ 3. वैज्ञानिकों में
✗ 4. तथ्यों का तर्क-वितर्क सहित

Question ID : 4410091530632
Option 1 ID : 4410096045613
Option 2 ID : 4410096045614
Option 3 ID : 4410096045611
Option 4 ID : 4410096045612

QuickSarkari.com | WhatsApp Channel | Telegram: t.me/quick_sarkari

Comprehension:

दिए गए गद्यांश को पढ़कर नीचे लिखे प्रश्नों के उत्तर दीजिए ।

राष्ट्र निर्माण की प्रक्रिया में युवाओं की भूमिका अत्यंत महत्त्वपूर्ण मानी जाती है, क्योंकि युवा वर्ग ऊर्जा, उत्साह, सृजनात्मकता और सकारात्मक परिवर्तन की भावना से परिपूर्ण होता है। उच्च शिक्षा, वैज्ञानिक सोच और तकनीकी दक्षता के माध्यम से युवा न केवल अपनी व्यक्तिगत उन्नति करते हैं, बल्कि समाज को भी प्रगतिशील दिशा प्रदान करते हैं। लोकतांत्रिक मूल्यों की रक्षा, सामाजिक कुरीतियों का उन्मूलन, पर्यावरण संरक्षण और आर्थिक विकास जैसे क्षेत्रों में युवाओं की सक्रिय भागीदारी राष्ट्र को सशक्त बनाती है। आज के समय में डिजिटल नवाचार, स्टार्ट-अप संस्कृति और सामाजिक अभियानों में युवाओं की बढ़ती उपस्थिति उनके नेतृत्व कौशल और जिम्मेदारी के प्रति सजगता को दर्शाती है। यदि युवा अपने कौशल और नैतिक मूल्यों का समुचित उपयोग करें, तो वे राष्ट्र को न केवल वर्तमान चुनौतियों से उबार सकते हैं, बल्कि भविष्य को भी अधिक स्थिर और समृद्ध बना सकते हैं। इस प्रकार, राष्ट्र-निर्माण की सतत प्रक्रिया में युवा एक मजबूत आधार-स्तंभ के रूप में उभरते हैं।

SubQuestion No : 11

Q.11 **उपर्युक्त गद्यांश का उचित शीर्षक क्या है?**

Ans
✗ 1. राष्ट्र निर्माण में युवाओं का नियमन
✗ 2. राष्ट्र निर्माण में युवाओं की उदासीनता
✗ 3. राष्ट्र निर्माण में युवाओं की निष्क्रियता
✓ 4. राष्ट्र निर्माण में युवाओं की भूमिका

Question ID : 4410091528392
Option 1 ID : 4410096036753
Option 2 ID : 4410096036752
Option 3 ID : 4410096036751
Option 4 ID : 4410096036754

QuickSarkari

Comprehension:

दिए गए गद्यांश को पढ़कर नीचे लिखे प्रश्नों के उत्तर दीजिए ।

राष्ट्र निर्माण की प्रक्रिया में युवाओं की भूमिका अत्यंत महत्त्वपूर्ण मानी जाती है, क्योंकि युवा वर्ग ऊर्जा, उत्साह, सृजनात्मकता और सकारात्मक परिवर्तन की भावना से परिपूर्ण होता है। उच्च शिक्षा, वैज्ञानिक सोच और तकनीकी दक्षता के माध्यम से युवा न केवल अपनी व्यक्तिगत उन्नति करते हैं, बल्कि समाज को भी प्रगतिशील दिशा प्रदान करते हैं। लोकतांत्रिक मूल्यों की रक्षा, सामाजिक कुरीतियों का उन्मूलन, पर्यावरण संरक्षण और आर्थिक विकास जैसे क्षेत्रों में युवाओं की सक्रिय भागीदारी राष्ट्र को सशक्त बनाती है। आज के समय में डिजिटल नवाचार, स्टार्ट-अप संस्कृति और सामाजिक अभियानों में युवाओं की बढ़ती उपस्थिति उनके नेतृत्व कौशल और जिम्मेदारी के प्रति सजगता को दर्शाती है। यदि युवा अपने कौशल और नैतिक मूल्यों का समुचित उपयोग करें, तो वे राष्ट्र को न केवल वर्तमान चुनौतियों से उबार सकते हैं, बल्कि भविष्य को भी अधिक स्थिर और समृद्ध बना सकते हैं। इस प्रकार, राष्ट्र-निर्माण की सतत प्रक्रिया में युवा एक मजबूत आधार-स्तंभ के रूप में उभरते हैं।

SubQuestion No : 12

Q.12 **किस क्षेत्र में युवाओं की सक्रिय भागीदारी राष्ट्र को सशक्त बनाने में बाधक है?**

Ans
✔ 1. सांप्रदायिक आंदोलन
✘ 2. लोकतांत्रिक मूल्यों की रक्षा
✘ 3. सामाजिक कुरीतियों का उन्मूलन
✘ 4. पर्यावरण संरक्षण और आर्थिक विकास

Question ID : 4410091528393
Option 1 ID : 4410096036756
Option 2 ID : 4410096036755
Option 3 ID : 4410096036757
Option 4 ID : 4410096036758

QuickSarkari

Comprehension:

दिए गए गद्यांश को पढ़कर नीचे लिखे प्रश्नों के उत्तर दीजिए ।

राष्ट्र निर्माण की प्रक्रिया में युवाओं की भूमिका अत्यंत महत्त्वपूर्ण मानी जाती है, क्योंकि युवा वर्ग ऊर्जा, उत्साह, सृजनात्मकता और सकारात्मक परिवर्तन की भावना से परिपूर्ण होता है। उच्च शिक्षा, वैज्ञानिक सोच और तकनीकी दक्षता के माध्यम से युवा न केवल अपनी व्यक्तिगत उन्नति करते हैं, बल्कि समाज को भी प्रगतिशील दिशा प्रदान करते हैं। लोकतांत्रिक मूल्यों की रक्षा, सामाजिक कुरीतियों का उन्मूलन, पर्यावरण संरक्षण और आर्थिक विकास जैसे क्षेत्रों में युवाओं की सक्रिय भागीदारी राष्ट्र को सशक्त बनाती है। आज के समय में डिजिटल नवाचार, स्टार्ट-अप संस्कृति और सामाजिक अभियानों में युवाओं की बढ़ती उपस्थिति उनके नेतृत्व कौशल और जिम्मेदारी के प्रति सजगता को दर्शाती है। यदि युवा अपने कौशल और नैतिक मूल्यों का समुचित उपयोग करें, तो वे राष्ट्र को न केवल वर्तमान चुनौतियों से उबार सकते हैं, बल्कि भविष्य को भी अधिक स्थिर और समृद्ध बना सकते हैं। इस प्रकार, राष्ट्र-निर्माण की सतत प्रक्रिया में युवा एक मजबूत आधार-स्तंभ के रूप में उभरते हैं।

SubQuestion No : 13

Q.13 **निम्नलिखित में से कौन-सा कथन उपर्युक्त गद्यांश के अनुसार सही नहीं है?**

Ans ✗ 1. युवा वर्ग ऊर्जा, उत्साह, सृजनात्मकता और सकारात्मक परिवर्तन की भावना से परिपूर्ण होता है।

✗ 2. युवा वर्ग अपने कौशल और नैतिक मूल्यों का समुचित उपयोग करके राष्ट्र को वर्तमान चुनौतियों से उबार सकता है।

✓ 3. वर्तमान में डिजिटल नवाचार, स्टार्ट-अप, संस्कृति और सामाजिक अभियानों में युवाओं की उपस्थिति कम हो रही है।

✗ 4. युवा वर्ग उच्च शिक्षा, वैज्ञानिक सोच और तकनीकी दक्षता के माध्यम से समाज को प्रगतिशील दिशा प्रदान करते हैं।

Question ID : 44100091528394
Option 1 ID : 44100096036760
Option 2 ID : 44100096036759
Option 3 ID : 44100096036761
Option 4 ID : 44100096036762

QuickSarkari

Comprehension:

दिए गए गद्यांश को पढ़कर नीचे लिखे प्रश्नों के उत्तर दीजिए ।

राष्ट्र निर्माण की प्रक्रिया में युवाओं की भूमिका अत्यंत महत्त्वपूर्ण मानी जाती है, क्योंकि युवा वर्ग ऊर्जा, उत्साह, सृजनात्मकता और सकारात्मक परिवर्तन की भावना से परिपूर्ण होता है। उच्च शिक्षा, वैज्ञानिक सोच और तकनीकी दक्षता के माध्यम से युवा न केवल अपनी व्यक्तिगत उन्नति करते हैं, बल्कि समाज को भी प्रगतिशील दिशा प्रदान करते हैं। लोकतांत्रिक मूल्यों की रक्षा, सामाजिक कुरीतियों का उन्मूलन, पर्यावरण संरक्षण और आर्थिक विकास जैसे क्षेत्रों में युवाओं की सक्रिय भागीदारी राष्ट्र को सशक्त बनाती है। आज के समय में डिजिटल नवाचार, स्टार्ट-अप संस्कृति और सामाजिक अभियानों में युवाओं की बढ़ती उपस्थिति उनके नेतृत्व कौशल और जिम्मेदारी के प्रति सजगता को दर्शाती है। यदि युवा अपने कौशल और नैतिक मूल्यों का समुचित उपयोग करें, तो वे राष्ट्र को न केवल वर्तमान चुनौतियों से उबार सकते हैं, बल्कि भविष्य को भी अधिक स्थिर और समृद्ध बना सकते हैं। इस प्रकार, राष्ट्र-निर्माण की सतत प्रक्रिया में युवा एक मजबूत आधार-स्तंभ के रूप में उभरते हैं।

SubQuestion No : 14

Q.14 **'स्टार्ट-अप','डिजिटल' किस प्रकार के शब्द हैं?**

Ans
✗ 1. तत्सम
✗ 2. तद्भव
✓ 3. विदेशज
✗ 4. देशज

Question ID : 4410091528395
Option 1 ID : 4410096036766
Option 2 ID : 4410096036765
Option 3 ID : 4410096036764
Option 4 ID : 4410096036763

QuickSarkari.com | WhatsApp Channel | Telegram: t.me/quick_sarkari

Comprehension:

दिए गए गद्यांश को पढ़कर नीचे लिखे प्रश्नों के उत्तर दीजिए ।

राष्ट्र निर्माण की प्रक्रिया में युवाओं की भूमिका अत्यंत महत्त्वपूर्ण मानी जाती है, क्योंकि युवा वर्ग ऊर्जा, उत्साह, सृजनात्मकता और सकारात्मक परिवर्तन की भावना से परिपूर्ण होता है। उच्च शिक्षा, वैज्ञानिक सोच और तकनीकी दक्षता के माध्यम से युवा न केवल अपनी व्यक्तिगत उन्नति करते हैं, बल्कि समाज को भी प्रगतिशील दिशा प्रदान करते हैं। लोकतांत्रिक मूल्यों की रक्षा, सामाजिक कुरीतियों का उन्मूलन, पर्यावरण संरक्षण और आर्थिक विकास जैसे क्षेत्रों में युवाओं की सक्रिय भागीदारी राष्ट्र को सशक्त बनाती है। आज के समय में डिजिटल नवाचार, स्टार्ट-अप संस्कृति और सामाजिक अभियानों में युवाओं की बढ़ती उपस्थिति उनके नेतृत्व कौशल और जिम्मेदारी के प्रति सजगता को दर्शाती है। यदि युवा अपने कौशल और नैतिक मूल्यों का समुचित उपयोग करें, तो वे राष्ट्र को न केवल वर्तमान चुनौतियों से उबार सकते हैं, बल्कि भविष्य को भी अधिक स्थिर और समृद्ध बना सकते हैं। इस प्रकार, राष्ट्र-निर्माण की सतत प्रक्रिया में युवा एक मजबूत आधार-स्तंभ के रूप में उभरते हैं।

SubQuestion No : 15

Q.15 **'उन्मूलन' का विलोम शब्द क्या है?**

Ans
✗ 1. कृपण
✓ 2. रोपण
✗ 3. आगर
✗ 4. आपण

Question ID : 4410091528396
Option 1 ID : 4410096036768
Option 2 ID : 4410096036767
Option 3 ID : 4410096036770
Option 4 ID : 4410096036769

QuickSarkari

Comprehension:

निम्नलिखित गद्यांश के आधार पर प्रश्नों के उत्तर दें -
प्रकृति ने संसार के सभी जीव-जंतुओं को पनपने एवं बढ़ने के अवसर प्रदान किए हैं। सभी प्राणियों में श्रेष्ठ होने के कारण मानव ने अनुकूल-प्रतिकूल, सभी परिस्थितियों में अपनी बुद्धि और विवेक का प्रयोग कर स्वयं को स्वस्थ बनाए रखने में सफलता प्राप्त की है। विश्व की सभी सभ्यता संस्कृतियों में न केवल स्वास्थ्य रक्षा को श्रेय दिया है, अपितु स्वस्थ्य रहने की तरह-तरह की विधियों का बखान भी किया है। समय पर सोना और सवेरे जगना मानव को स्वस्थ, सम्पन्न और बुद्धिमान बनाता है आज की भागदौड़ भरी जिंदगी में मनुष्य के पास फुर्सत के दो पल भी नसीब नहीं है। घर से दफ्तर, दफ्तर से घर, तो कभी घर ही दफ्तर बन जाता है यानी इंसान के कार्यों की कोई सीमा नहीं है। वह हमेशा स्वयं को व्यस्त रखता है। इस व्यस्तता के कारण आज मानव शरीर तनाव, थकान बीमारी आदि का घर बनता जा रहा है। आज उसने हर प्रकार की सुख-सुविधाएं तो अर्जित कर ली हैं, किन्तु उसके सामने शारीरिक एवं मानसिक तौर पर स्वस्थ रहने की चुनौती आ खड़ी हुई है।

SubQuestion No : 16

Q.16 **गद्यांश का वास्तविक जीवन से क्या संबंध है?**

Ans
✗ 1. धन अर्जन से
✓ 2. स्वास्थ्य और व्यायाम से
✗ 3. मानव की सुख-सुविधाओं से
✗ 4. मनुष्य के संघर्ष से

Question ID : 4410091503269
Option 1 ID : 4410095937284
Option 2 ID : 4410095937286
Option 3 ID : 4410095937285
Option 4 ID : 4410095937287

Comprehension:

निम्नलिखित गद्यांश के आधार पर प्रश्नों के उत्तर दें -
प्रकृति ने संसार के सभी जीव-जंतुओं को पनपने एवं बढ़ने के अवसर प्रदान किए हैं। सभी प्राणियों में श्रेष्ठ होने के कारण मानव ने अनुकूल-प्रतिकूल, सभी परिस्थितियों में अपनी बुद्धि और विवेक का प्रयोग कर स्वयं को स्वस्थ बनाए रखने में सफलता प्राप्त की है। विश्व की सभी सभ्यता संस्कृतियों में न केवल स्वास्थ्य रक्षा को श्रेय दिया है, अपितु स्वस्थ्य रहने की तरह-तरह की विधियों का बखान भी किया है। समय पर सोना और सवेरे जगना मानव को स्वस्थ, सम्पन्न और बुद्धिमान बनाता है आज की भागदौड़ भरी जिंदगी में मनुष्य के पास फुर्सत के दो पल भी नसीब नहीं है। घर से दफ्तर, दफ्तर से घर, तो कभी घर ही दफ्तर बन जाता है यानी इंसान के कार्यों की कोई सीमा नहीं है। वह हमेशा स्वयं को व्यस्त रखता है। इस व्यस्तता के कारण आज मानव शरीर तनाव, थकान बीमारी आदि का घर बनता जा रहा है। आज उसने हर प्रकार की सुख-सुविधाएं तो अर्जित कर ली हैं, किन्तु उसके सामने शारीरिक एवं मानसिक तौर पर स्वस्थ रहने की चुनौती आ खड़ी हुई है।

SubQuestion No : 17

Q.17 **मनुष्य को आनंद कब मिलता है?**

Ans
✗ 1. अधिक धन सम्पन्न हो।
✓ 2. शारीरिक और मानसिक रूप से स्वस्थ हो।
✗ 3. जब सफलता प्राप्त कर ली हो।
✗ 4. जब ऐशो-आराम की सभी वस्तुएं हों।

Question ID : 4410091503270
Option 1 ID : 4410095937290
Option 2 ID : 4410095937288
Option 3 ID : 4410095937291
Option 4 ID : 4410095937289

QuickSarkari.com | WhatsApp Channel | Telegram: t.me/quick_sarkari

Comprehension:

निम्नलिखित गद्यांश के आधार पर प्रश्नों के उत्तर दें -
प्रकृति ने संसार के सभी जीव-जंतुओं को पनपने एवं बढ़ने के अवसर प्रदान किए हैं। सभी प्राणियों में श्रेष्ठ होने के कारण मानव ने अनुकूल-प्रतिकूल, सभी परिस्थितियों में अपनी बुद्धि और विवेक का प्रयोग कर स्वयं को स्वस्थ बनाए रखने में सफलता प्राप्त की है। विश्व की सभी सभ्यता संस्कृतियों में न केवल स्वास्थ्य रक्षा को श्रेय दिया है, अपितु स्वस्थ्य रहने की तरह-तरह की विधियों का बखान भी किया है। समय पर सोना और सवेरे जगना मानव को स्वस्थ, सम्पन्न और बुद्धिमान बनाता है आज की भागदौड़ भरी जिंदगी में मनुष्य के पास फुर्सत के दो पल भी नसीब नहीं है। घर से दफ्तर, दफ्तर से घर, तो कभी घर ही दफ्तर बन जाता है यानी इंसान के कार्यों की कोई सीमा नहीं है। वह हमेशा स्वयं को व्यस्त रखता है। इस व्यस्तता के कारण आज मानव शरीर तनाव, थकान बीमारी आदि का घर बनता जा रहा है। आज उसने हर प्रकार की सुख-सुविधाएं तो अर्जित कर ली हैं, किन्तु उसके सामने शारीरिक एवं मानसिक तौर पर स्वस्थ रहने की चुनौती आ खड़ी हुई है।

SubQuestion No : 18

Q.18 **आज की भाग दौड़ भरी जिंदगी में मनुष्य के जीवन पर क्या असर पड़ा है?**

Ans
✗ 1. भाग-दौड़ भरी जिंदगी से मनुष्य को मानसिक शांति प्राप्त हो गई है।

✗ 2. इंसान ने दफ्तर को ही घर बना लिया है।

✗ 3. मनुष्य ने अधिक धन अर्जित कर लिया है।

✓ 4. मानव तनाव, थकान, बीमारी इत्यादि का घर बनता जा रहा है।

Question ID : 4410091503271
Option 1 ID : 4410095937295
Option 2 ID : 4410095937293
Option 3 ID : 4410095937292
Option 4 ID : 4410095937294

Comprehension:

निम्नलिखित गद्यांश के आधार पर प्रश्नों के उत्तर दें -
प्रकृति ने संसार के सभी जीव-जंतुओं को पनपने एवं बढ़ने के अवसर प्रदान किए हैं। सभी प्राणियों में श्रेष्ठ होने के कारण मानव ने अनुकूल-प्रतिकूल, सभी परिस्थितियों में अपनी बुद्धि और विवेक का प्रयोग कर स्वयं को स्वस्थ बनाए रखने में सफलता प्राप्त की है। विश्व की सभी सभ्यता संस्कृतियों में न केवल स्वास्थ्य रक्षा को श्रेय दिया है, अपितु स्वस्थ्य रहने की तरह-तरह की विधियों का बखान भी किया है। समय पर सोना और सवेरे जगना मानव को स्वस्थ, सम्पन्न और बुद्धिमान बनाता है आज की भागदौड़ भरी जिंदगी में मनुष्य के पास फुर्सत के दो पल भी नसीब नहीं है। घर से दफ्तर, दफ्तर से घर, तो कभी घर ही दफ्तर बन जाता है यानी इंसान के कार्यों की कोई सीमा नहीं है। वह हमेशा स्वयं को व्यस्त रखता है। इस व्यस्तता के कारण आज मानव शरीर तनाव, थकान बीमारी आदि का घर बनता जा रहा है। आज उसने हर प्रकार की सुख-सुविधाएं तो अर्जित कर ली हैं, किन्तु उसके सामने शारीरिक एवं मानसिक तौर पर स्वस्थ रहने की चुनौती आ खड़ी हुई है।

SubQuestion No : 19

Q.19 **गद्यांश का भाव बताएं -**

Ans
✗ 1. सुख-सुविधाएं अति आवश्यक हैं।

✓ 2. मानव के लिए स्वास्थ्य अति आवश्यक है।

✗ 3. मनुष्य के लिए धन आवश्यक है।

✗ 4. भाग-दौड़ भरी जिंदगी में मानव खुश है।

Question ID : 4410091503272
Option 1 ID : 4410095937298
Option 2 ID : 4410095937299
Option 3 ID : 4410095937296
Option 4 ID : 4410095937297

QuickSarkari.com | WhatsApp Channel | Telegram: t.me/quick_sarkari

Comprehension:

निम्नलिखित गद्यांश के आधार पर प्रश्नों के उत्तर दें -

प्रकृति ने संसार के सभी जीव-जंतुओं को पनपने एवं बढ़ने के अवसर प्रदान किए हैं। सभी प्राणियों में श्रेष्ठ होने के कारण मानव ने अनुकूल-प्रतिकूल, सभी परिस्थितियों में अपनी बुद्धि और विवेक का प्रयोग कर स्वयं को स्वस्थ बनाए रखने में सफलता प्राप्त की है। विश्व की सभी सभ्यता संस्कृतियों में न केवल स्वास्थ्य रक्षा को श्रेय दिया है, अपितु स्वस्थ्य रहने की तरह-तरह की विधियों का बखान भी किया है। समय पर सोना और सवेरे जगना मानव को स्वस्थ, सम्पन्न और बुद्धिमान बनाता है आज की भागदौड़ भरी जिंदगी में मनुष्य के पास फुर्सत के दो पल भी नसीब नहीं है। घर से दफ्तर, दफ्तर से घर, तो कभी घर ही दफ्तर बन जाता है यानी इंसान के कार्यों की कोई सीमा नहीं है। वह हमेशा स्वयं को व्यस्त रखता है। इस व्यस्तता के कारण आज मानव शरीर तनाव, थकान बीमारी आदि का घर बनता जा रहा है। आज उसने हर प्रकार की सुख-सुविधाएं तो अर्जित कर ली हैं, किन्तु उसके सामने शारीरिक एवं मानसिक तौर पर स्वस्थ रहने की चुनौती आ खड़ी हुई है।

SubQuestion No : 20

Q.20 **गद्यांश का निष्कर्ष बताएं -**

Ans
✗ 1. अपनी व्यस्तता के कारण ही मनुष्य प्रसन्न है।

✓ 2. शारीरिक और मानसिक रूप से स्वस्थ्य रहना अति आवश्यक है।

✗ 3. मनुष्य अपनी भाग-दौड़ भरी जिंदगी में खुश है।

✗ 4. विश्व की सभ्यता संस्कृति ने केवल धन को महत्त्व दिया है।

Question ID : 4410091503273
Option 1 ID : 4410095937303
Option 2 ID : 4410095937300
Option 3 ID : 4410095937302
Option 4 ID : 4410095937301

"

QuickSarkari.com | WhatsApp Channel | Telegram: t.me/quick_sarkari

Quick Sarkari

Thank you for studying with QuickSarkari!

Get the latest Sarkari Naukri notifications, admit cards, results, answer keys and free previous-year papers first - follow us on WhatsApp and Telegram.

Visit www.quicksarkari.com

Join our WhatsApp Channel

https://whatsapp.com/channel/0029VaxxbrREquiPoXTWM229

Join our Telegram Channel

https://t.me/quick_sarkari

Share this PDF with your friends preparing for DSSSB exams.