Quick Sarkari

DSSSB PREVIOUS YEAR PAPER WITH ANSWER KEY

DSSSB Caretaker

24 February 2026 · Shift 1

डीएसएसएसबी केयरटेकर – 24 फरवरी 2026, शिफ्ट 1 का प्रश्न पत्र, उत्तर कुंजी सहित

200	120 min	1 / −0.25	EN + HI
Questions / प्रश्न	Duration / समय	Marks per Q / अंक	Language / भाषा

Sections: General intelligence and Reasoning Ability, General Awareness, Arithmetical and Numerical Ability, English Language and Comprehension, Hindi Language and Comprehension

INSIDE THIS PDF / इस PDF में

Question Paper in English + Hindi with Answer Key (correct option marked in green) + answer table Page 2–52
प्रश्न पत्र अंग्रेज़ी + हिंदी में, उत्तर कुंजी सहित (सही विकल्प हरे रंग में) + उत्तर तालिका

Official DSSSB Response Sheet with Answer Key (correct option ticked in green) Page 53–126
आधिकारिक DSSSB रिस्पॉन्स शीट, उत्तर कुंजी सहित (सही विकल्प हरे टिक से)

HOW TO USE THIS PAPER / इस पेपर का उपयोग कैसे करें

1. Attempt the paper first as a timed online mock test (link below).
   पहले नीचे दिए लिंक से इसे टाइमर के साथ ऑनलाइन मॉक टेस्ट के रूप में हल करें।
2. Check your score, section-wise analysis and solutions online.
   ऑनलाइन अपना स्कोर, खंड-वार विश्लेषण और हल देखें।
3. Use this PDF for revision. Correct answers are shown in green.
   दोहराने के लिए इस PDF का उपयोग करें। सही उत्तर हरे रंग में दिए गए हैं।

Attempt this paper as a FREE online mock test
इस पेपर को फ्री ऑनलाइन मॉक टेस्ट के रूप में हल करें – टाइमर, स्कोर और हल के साथ
https://quicksarkari.com/dsssb-caretaker-24-february-2026-shift-1-mock-test/

All DSSSB Caretaker papers and mock tests: **quicksarkari.com/dsssb-mock-test/#caretaker**

Join WhatsApp Channel | Join Telegram Channel

DSSSB Caretaker – Question Paper (English + Hindi)

DSSSB केयरटेकर – प्रश्न पत्र (अंग्रेज़ी + हिंदी)

Exam held on 24 February 2026, Shift 1 · 200 questions · correct answers marked ✔ in green
परीक्षा तिथि 24 फरवरी 2026, शिफ्ट 1 · 200 प्रश्न · सही उत्तर हरे रंग में ✔ से चिह्नित

> The official paper for this shift was in English. The Hindi version of each question is a translation prepared by QuickSarkari; the language-section questions are shown as asked.
> इस शिफ्ट का आधिकारिक प्रश्न पत्र अंग्रेज़ी में था। प्रत्येक प्रश्न का हिंदी संस्करण QuickSarkari द्वारा तैयार किया गया अनुवाद है; भाषा खंड के प्रश्न मूल रूप में दिए गए हैं।

General intelligence and Reasoning Ability

Q.1 A, D, F, G, H and S live on six different floors of the same building. The lowermost floor of the building is numbered 1, the floor above it is numbered 2, and so on till the topmost floor is numbered 6.
H lives on an even-numbered floor but not on 6. The sum of the floor numbers on which G and H live is 7. A lives immediately above S. The sum of the floor numbers on which H and D live is 3. How many persons live between H and A?

A, D, F, G, H और S एक ही इमारत के छह अलग-अलग तलों पर रहते हैं। इमारत के सबसे निचले तल का क्रमांक 1 है, उसके ऊपर वाले तल का क्रमांक 2 है, और इसी तरह सबसे ऊपरी तल का क्रमांक 6 है।
H, सम क्रमांक वाले किसी एक तल पर रहता है लेकिन 6 पर नहीं रहता है। G और H जिन तलों पर रहते हैं, उन तलों के क्रमांकों का योग 7 है। A, S के ठीक ऊपर रहता है। H और D जिन तलों पर रहते हैं, उन तलों के क्रमांकों का योग 3 है। H और A के बीच कितने व्यक्ति रहते हैं?

(1) 4
(2) **1 ✔**
(3) 2
(4) 3

Q.2 Seven boxes B, F, G, H, R, T and Y are kept one above the other, but not necessarily in the same order. Only two boxes are kept below T. Only one box is kept above H. Only one box is kept between H and G. R is kept immediately above Y. F is kept at some position below B. How many boxes are kept below R?

सात बॉक्स B, F, G, H, R, T और Y एक के ऊपर एक रखे गए हैं, लेकिन जरूरी नहीं कि इसी क्रम में रखे गए हों। T के नीचे केवल दो बॉक्स रखे गए हैं। H के ऊपर केवल एक बॉक्स रखा गया है। H और G के बीच में केवल एक बॉक्स रखा गया है। R को Y के ठीक ऊपर रखा गया है। F को B के नीचे किसी एक स्थान पर रखा गया है। R के नीचे कितने बॉक्स रखे गए हैं?

(1) 2
(2) 4
(3) **1 ✔**
(4) 3

Q.3 Seven persons F, G, H, Q, R, S and T are sitting in a straight row, facing north. No one sits to the right of Q. Only two persons sit to the left of R. Only two persons sit between R and T. H sits third to the left of F. S sits to the immediate right of F. How many persons sit between G and T?

सात व्यक्ति F, G, H, Q, R, S और T उत्तर की ओर अभिमुख होकर एक सीधी पंक्ति में बैठे हैं। Q के दाईं ओर कोई नहीं बैठा है। R के बाईं ओर केवल दो व्यक्ति बैठे हैं। R और T के बीच में केवल दो व्यक्ति बैठे हैं। H, F के बाईं ओर तीसरे स्थान पर बैठा है। S, F के ठीक दाईं ओर पड़ोस में बैठा है। G और T के बीच में कितने व्यक्ति बैठे हैं?

(1) One / एक
(2) Two / दो
(3) **Three / तीन ✔**
(4) Four / चार

Q.4 Refer to the following letter series and answer the question given below. (Counting to be done from left to right only.)
(Left) I L O O R B R U X H X A W S I T E F V I L P (Right)
How many such consonants are there, each of which is immediately preceded by a consonant and also immediately followed by a vowel?
निम्नलिखित अक्षर शृंखला का संदर्भ लीजिए और नीचे दिए गए प्रश्न का उत्तर दीजिए। (गणना केवलबाएं से दाएं की जानी है।)
(बाएं) I L O O R B R U X H X A W S I T E F V I L P (दाएं)
ऐसे कितने व्यंजन हैं, जिनमें से प्रत्येक के ठीक पहले एक व्यंजन है और ठीक बाद एक स्वर भी है?

(1) 4 ✔
(2) 5
(3) 6
(4) 3

Q.5 Refer to the following letter, symbol series and answer the question. Counting to be done from left to right only.
(Left) $ N % M U @ © % V A * & X U $ £ $ V Q % Z P (Right)
How many such letters are there, each of which is immediately preceded by a symbol and also immediately followed by a symbol?
निम्नलिखित अक्षर, प्रतीक शृंखला का संदर्भ लीजिए और प्रश्न का उत्तर दीजिए। गणना केवल बाएं से दाएं की जानी है।
(बाएं) $ N % M U @ © % V A * & X U $ £ $ V Q % Z P (दाएं)
ऐसे कितने अक्षर हैं, जिनमें से प्रत्येक के ठीक पहले एक प्रतीक है और ठीक बाद भी एक प्रतीक है?

(1) 1 ✔
(2) 3
(3) 0
(4) 2

Q.6 In a certain code language, 'SITE' is coded as '8312' and 'MIST' is coded as '4381'.
What is the code for 'M' in the given code language?
एक निश्चित कूट भाषा में, 'SITE' को '8312' लिखा जाता है और 'MIST' को '4381' लिखा जाता है।
उसी कूट भाषा में 'M' के लिए कूट क्या है?

(1) 1
(2) 2
(3) 4 ✔
(4) 3

Q.7 D, F, G, H, J, K, and L are sitting around a circular table facing the center. G sits immediately to the right of D. Only three people sit between G and L when counted from the left of G. Only three people sit between D and H when counted from the left of D. F sits immediately to the right of J.
How many people sit between G and J when counted from the left of J?
D, F, G, H, J, K और L एक वृत्ताकार मेज के परितः केंद्र की ओर अभिमुख होकर बैठे हैं। G, D के ठीक दाईं ओर बैठा है। G के बाईं ओर से गिनने पर, G और L के बीच केवल तीन व्यक्ति बैठे हैं। D के बाईं ओर से गिनने पर, D और H के बीच केवल तीन व्यक्ति बैठे हैं। F, J के ठीक दाईं ओर बैठा है।
J के बाईं ओर से गिनने पर, G और J के बीच कितने व्यक्ति बैठे हैं?

(1) 4
(2) 2
(3) 1
(4) 3 ✔

Q.8 Refer to the following letter series and answer the question given below (Left) W K R H N J V B F M A D Z X S T W F O Y G (Right)
How many letters are there in the English alphabetical series between the seventh letter from the right end and the fifth letter from the left end of the above series?
निम्नलिखित अक्षर शृंखला का संदर्भ लीजिए और नीचे दिए गए प्रश्न का उत्तर दीजिए (बाएं) W K R H N J V B F M A D Z X S T W F O Y G (दाएं)
उपरोक्त शृंखला के दाएं छोर से सातवें अक्षर और बाएं छोर से पांचवें अक्षर के बीच अंग्रेजी वर्णमाला शृंखला में कितने अक्षर होते हैं?

(1) Four / चार ✔
(2) Two / दो
(3) None / एक भी नहीं
(4) Three / तीन

Q.9 Refer to the following number, symbol series and answer the given question. (All numbers are single-digit numbers only)
(Left) 8 @ 4 # 4 % 7 * 9 + 7 ? @ 1 $ # 5 ^ 2 & 4 $ 1 @ (Right)
If all the symbols are removed from the series, which of the following will be seventh from the right?
निम्नलिखित संख्या, प्रतीक शृंखला का संदर्भ लीजिए और दिए गए प्रश्न का उत्तर दीजिए। (सभी संख्याएँ केवल एक अंक वाली संख्याएँ हैं)
(बाएँ) 8 @ 4 # 4 % 7 * 9 + 7 ? @ 1 $ # 5 ^ 2 & 4 $ 1 @ (दाएँ)
यदि श्रृंखला से सभी प्रतीकों को हटा दिया जाए, तो निम्नलिखित में से कौन-सा दाईं ओर से सातवांहोगा?

(1) 5
(2) 9 ✔
(3) 1
(4) 4

Q.10 D, F, G, H, J, K and L are sitting around a circular table, facing the centre.
Only two persons sit between H and K when counted from the left of H. J is the immediate neighbour of K.
Only one person sits between J and L when counted from the left of J. L is not the immediate neighbour of K.
D sits to the immediate left of F.
How many persons sit between G and L when counted from the left of L?
D, F, G, H, J, K और L एक गोल मेज के परित: केंद्र की ओर अभिमुख होकर बैठे हैं।
H के बाईं ओर से गिनने पर, H और K के बीच केवल दो व्यक्ति बैठे हैं। J, K का निकटतम पड़ोसी है। J के बाईं ओर से गिनने पर, J और L के बीच केवल एक व्यक्ति बैठा है। L, K का निकटतम पड़ोसी नहीं है।
D, F के ठीक बाईं ओर पड़ोस में बैठा है।
L के बाईं ओर से गिनने पर, G और L के बीच कितने व्यक्ति बैठे हैं?

(1) 0
(2) 3
(3) 2
(4) 5 ✔

Q.11 Refer to the following series and answer the question. (All numbers are single-digit numbers only) (Counting to be done from left to right only)
(Left) 1 3 2 9 7 3 7 8 9 6 4 9 7 9 8 3 4 4 7 2 1 1 2 (Right)
How many such odd digits are there, each of which is immediately preceded by an odd digit and also immediately followed by an odd digit?

निम्नलिखित शृंखला का संदर्भ लीजिए और प्रश्न का उत्तर दीजिए। (सभी संख्याएँ केवल एक अंक वाली संख्याएँ हैं) (गणना केवल बाएं से दाएं की जानी है)
(बाएं) 1 3 2 9 7 3 7 8 9 6 4 9 7 9 8 3 4 4 7 2 1 1 2 (दाएं)
ऐसे कितने विषम अंक हैं, जिनमें से प्रत्येक के ठीक पहले एक विषम अंक है और ठीक बाद भी एक विषम अंक है?

(1) Three / तीन ✔
(2) One / एक
(3) Two / दो
(4) Zero / शून्य

Q.12 D, F, G, H, J, K and L are sitting around a circular table, facing the centre.
Only two persons sit between L and G when counted from the right of L. Only three persons sit between K and J when counted from the right of J. G sits to the immediate right of J. D sits to the immediate right of H.
How many persons sit between D and F when counted from the right of D?

D, F, G, H, J, K और L एक गोल मेज के परित: केंद्र की ओर अभिमुख होकर बैठे हैं।
L के दाईं ओर से गिनने पर, L और G के बीच केवल दो व्यक्ति बैठे हैं। J के दाईं ओर से गिनने पर, K और J के बीच केवल तीन व्यक्ति बैठे हैं। G, J के ठीक दाईं ओर पड़ोस में बैठा है। D, H के ठीक दाईं ओर पड़ोस में बैठा है।
D के दाईं ओर से गिनने पर, D और F के बीच कितने व्यक्ति बैठे हैं?

(1) 4
(2) 1
(3) 3
(4) 2 ✔

Q.13 Refer to the following letter series and answer the question given below. (Counting to be done from left to right only.)
(Left) G J O X X W J O D Y V E N S T P E X Y A Y C (Right)
How many such consonants are there, each of which is immediately preceded by a consonant and also immediately followed by a consonant?

निम्नलिखित अक्षर शृंखला का संदर्भ लीजिए और नीचे दिए गए प्रश्न का उत्तर दीजिए। (गणना केवलबाएं से दाएं की जानी है।)
(बाएं) G J O X X W J O D Y V E N S T P E X Y A Y C (दाएं)
ऐसे कितने व्यंजन हैं, जिनमें से प्रत्येक के ठीक पहले एक व्यंजन है और ठीक बाद भी एक व्यंजन है?

(1) 6
(2) 7
(3) 4
(4) 5 ✔

Q.14 Refer to the following letter series and answer the question given below. (Counting to be done from left to right only.)
(Left) K Q I G I P M O P P V A V X S M I J M U S D (Right)
How many such consonants are there, each of which is immediately preceded by a consonant and also immediately followed by a vowel?

निम्नलिखित अक्षर शृंखला का संदर्भ लीजिए और नीचे दिए गए प्रश्न का उत्तर दीजिए। (गणना केवलबाएं से दाएं की जानी है।)
(बाएं) K Q I G I P M O P P V A V X S M I J M U S D (दाएं)
ऐसे कितने व्यंजन हैं, जिनमें से प्रत्येक के ठीक पहले एक व्यंजन है और ठीक बाद एक स्वर भी है?

(1) 7
(2) 4
(3) 6
(4) 5 ✔

Q.15 Refer to the following letter series and answer the question. (Counting to be done from left to right only)
(Left) M N A I L N B I V D W A C K Z E E M A U D N (Right)
How many such consonants are there, each of which is immediately preceded by a consonant and also immediately followed by a vowel?

निम्नलिखित अक्षर शृंखला का संदर्भ लीजिए और प्रश्न का उत्तर दीजिए। (गणना केवल बाएं से दाएं की जानी है)
(बाएं) M N A I L N B I V D W A C K Z E E M A U D N (दाएं)
ऐसे कितने व्यंजन हैं, जिनमें से प्रत्येक के ठीक पहले एक व्यंजन है और ठीक बाद एक स्वर भी है?

(1) 3
(2) 4 ✔
(3) 5
(4) 6

Q.16 In a certain code language, A % B means 'A is the father of B', A ≥ B means 'A is the sister of B', A @ B means 'A is the wife of B', A ¥ B means 'A is the son of B'.
Which of the following means that P is the brother of A's wife?

एक निश्चित कूट भाषा में, A % B का अर्थ है कि 'A, B का पिता है', A ≥ B का अर्थ है कि 'A, B की बहन है', A @ B का अर्थ है कि 'A, B की पत्नी है', A ¥ B का अर्थ है कि 'A, B का पुत्र है'।
निम्नलिखित में से किसका अर्थ है कि P, A की पत्नी का भाई है?

(1) P ¥ O % N ≥ M @ A ✔
(2) P % O ≥ N @ M ¥ A
(3) P @ O % N ≥ M ¥ A
(4) P @ O ≥ N % M ¥ A

Q.17 Dinesh is ranked 97th from the top and 18th from the bottom in his class. How many students are there in his class in total?

दिनेश अपनी कक्षा में शीर्ष से 97वें और नीचे से 18वें स्थान पर है। उसकी कक्षा में कुल कितने विद्यार्थी हैं?

(1) 114 ✔
(2) 112
(3) 116
(4) 110

Q.18 In a certain code language "WEOK" is coded as "68" and "DYPK " is coded as "66".
What is the code for "LAXG" in the given language?

एक निश्चित कूट भाषा में "WEOK" को "68" लिखा जाता है और "DYPK " को "66" लिखा जाता है।
उसी भाषा में "LAXG" के लिए कूट क्या है?

(1) 52
(2) 70
(3) **78 ✔**
(4) 58

Q.19 In a certain code language, A % B means 'A is the father of B', A ≥ B means 'A is the brother of B', A @ B means 'A is the wife of B', A ¥ B means 'A is the daughter of B'.
Which of the following means that Q is the wife's sister of V?

एक निश्चित कूट भाषा में, A % B का अर्थ है 'A, B का पिता है', A ≥ B का अर्थ है 'A, B का भाई है', A @ B का अर्थ है 'A, B की पत्नी है', A ¥ B का अर्थ है 'A, B की पुत्री है'।
निम्नलिखित में से किसका अर्थ है कि Q, V की पत्नी की बहन है?

(1) **Q ¥ R % T ≥ U @ V ✔**
(2) Q @ R ≥ T % U ¥ V
(3) Q % R ≥ T @ U ¥ V
(4) Q @ R % T ≥ U ¥ V

Q.20 Seven boxes B, F, G, H, R, T and Y are kept one above the other, but not necessarily in the same order. R is kept second from the bottom. Only three boxes are kept between R and G. Y is kept at some position below R. Only F is kept between G and T. B is kept at some position above G. How many boxes are kept below H?

सात बॉक्स B, F, G, H, R, T और Y एक के ऊपर एक रखे गए हैं, लेकिन जरूरी नहीं कि इसी क्रम में रखे गए हों।
R को नीचे से दूसरे स्थान पर रखा गया है। R और G के बीच केवल तीन बॉक्स रखे गए हैं। Y को R के नीचे किसी एक स्थान पर रखा गया है। G और T के बीच केवल F को रखा गया है। B को G के ऊपर किसी एक स्थान पर रखा गया है। H के नीचे कितने बॉक्स रखे गए हैं?

(1) 3
(2) 1
(3) **2 ✔**
(4) 4

Q.21 Two sets of numbers are given below. In each set of numbers, certain mathematical operation(s) on the first number result(s) in the second number. Similarly, certain mathematical operation(s) on the second number result(s) in the third number and so on. Which of the given options follows the same set of operations as in the given sets?
(NOTE – A two/three-digit number cannot be broken into individual digits for mathematical operations, e.g. if 37 is followed by 10, the operation cannot be 3+7 as a two-digit number cannot be broken into individual digits)
55 – 11 – 10 – 20 ; 30 – 6 – 5 – 10

संख्याओं के दो सेट नीचे दिए गए हैं। संख्याओं के प्रत्येक सेट में, पहली संख्या पर कुछ गणितीय संक्रियाएं करके दूसरी संख्या प्राप्त की जाती है। इसी प्रकार, दूसरी संख्या पर कुछ गणितीय संक्रियाएं करके तीसरी संख्या प्राप्त की जाती है, और इसी प्रकार आगे की संख्याएं प्राप्त की जाती हैं। दिए गए विकल्पों में से कौन-सा विकल्प प्रश्न में दिए गए सेटों के समान संक्रियाओं का अनुसरण करता है?
(नोट - दो/तीन अंकीय संख्याओं को गणितीय संक्रिया के लिए अलग-अलग अंकों में तोड़ने की अनुमति नहीं है, जैसे कि, यदि 37 के बाद 10 है, तो संक्रिया 3+7 नहीं हो सकती है क्योंकि दो अंकीय संख्या को अलग-अलग अंकों में नहीं तोड़ा जा सकता है)
55 – 11 – 10 – 20 ; 30 – 6 – 5 – 10

(1) 40 – 8 – 16 – 20
(2) 80 – 16 – 15 – 30 ✔
(3) 25 – 5 – 10 – 40
(4) 65 – 13 – 26 – 16

Q.22 What will come in the place of '?' in the following equation, if '+' and '-' are interchanged and 'x' and '÷' are interchanged?
36 ÷ 7 + 289 x 17 - 16 = ?

यदि '+' और '-' को आपस में बदल दिया जाए तथा 'x' और '÷' को आपस में बदल दिया जाए, तो निम्नलिखित समीकरण में '?' के स्थान पर क्या आएगा?
36 ÷ 7 + 289 x 17 - 16 = ?

(1) 269
(2) 216
(3) 251 ✔
(4) 235

Q.23 Based on the alphabetical order, three of the following four are alike in a certain way and thus form a group. Which is the one that does not belong to that group?
(Note: The odd man out is not based on the number of consonants/vowels or their position in the letter cluster)

अंग्रेजी वर्णमाला क्रम के आधार पर, निम्नलिखित चार में से तीन किसी निश्चित प्रकार से एकसमान हैं और इस प्रकार एक समूह बनाते हैं। वह कौन-सा विकल्प है जो उस समूह से संबंधित नहीं है?
(नोट: असंगत का निर्धारण व्यंजनों/स्वरों की संख्या या अक्षर-समूह में उनके स्थान पर आधारित नहीं है)

(1) GIK
(2) JLN
(3) MOQ
(4) PRU ✔

Q.24 OWHA is related to LUEY in a certain way based on the English alphabetical order. In the same way, ZPIV is related to WNFT. To which of the following is KSAX related to, following the same logic?

अंग्रेजी वर्णमाला क्रम के आधार पर OWHA एक निश्चित प्रकार से LUEY से संबंधित है। उसी प्रकार, ZPIV, WNFT से संबंधित है। समान तर्क का अनुसरण करते हुए, KSAX निम्नलिखित में से किससे संबंधित है?

(1) GPWX

(2) HQXV ✔

(3) HPZU

(4) GQYW

Q.25 Below are given two sets of numbers. In each set of numbers, certain mathematical operation(s) on first number results in the second number. Similarly, certain mathematical operation(s) on second number results in the third number and so on.

Which of the given options follows the same set of operations as in the question?

(NOTE – A two/three-digit number cannot be broken into individual digits for operations, e.g. if 37 is followed by 10, the operation cannot be 3 + 7 as a two-digit number cannot be broken into individual digits)

5 – 13 – 39 – 18 6 – 14 – 42 – 21

नीचे संख्याओं के दो सेट दिए गए हैं। संख्याओं के प्रत्येक सेट में, पहली संख्या पर कुछ गणितीय संक्रिया/संक्रियाएं करने पर दूसरी संख्या प्राप्त होती है। इसी प्रकार, दूसरी संख्या पर कुछ गणितीय संक्रिया/संक्रियाएं करने पर तीसरी संख्या प्राप्त होती है और इसी प्रकार आगे भी।

दिए गए विकल्पों में से कौन-सा विकल्प प्रश्न में दी गई संक्रियाओं के समान सेट का अनुसरण करता है?

(नोट - दो/तीन अंकीय संख्या को संक्रियाओं के लिए अलग-अलग अंकों में नहीं तोड़ा जा सकता है, जैसे कि यदि 37 के बाद 10 है, तो संक्रिया 3 + 7 नहीं हो सकती है क्योंकि दो अंकीय संख्या को अलग-अलग अंकों में नहीं तोड़ा जा सकता है)

5 – 13 – 39 – 18 6 – 14 – 42 – 21

(1) 15 – 23 – 69 – 90

(2) 9 – 17 – 51 – 30 ✔

(3) 13 – 21 – 62 – 41

(4) 11 – 19 – 57 – 26

Q.26 192 is related to 14 following a certain logic. Following the same logic, 285 is related to 17.

To which of the given options is 320 related, following the same logic?

(NOTE: Operations should be performed on the whole numbers, without breaking down the numbers into their constituent digits.

E.g. 13 – Operations on 13 such as adding/subtracting/multiplying etc. to 13 can be performed. Breaking down 13 into 1 and 3 and then performing mathematical operations on 1 and 3 is not allowed.)

एक निश्चित तर्क के अनुसार 192 का संबंध 14 से है। उसी तर्क के अनुसार, 285 का संबंध 17 से है।

समान तर्क का अनुसरण करते हुए 320 का संबंध दिए गए विकल्पों में किससे है?

(नोट: संख्याओं को उनके घटक अंकों में तोड़े बिना, पूर्ण संख्याओं पर संक्रियाएं की जानी चाहिए।

उदाहरण के लिए 13 लीजिए, 13 पर संक्रियाएं जैसे कि 13 में जोड़ना/घटाना/गुणा करना आदि, की जा सकती हैं। 13 को 1 और 3 में तोड़ना तथा फिर 1 और 3 पर गणितीय संक्रियाएं करने की अनुमति नहीं है।)

(1) 20

(2) 16

(3) 15

(4) 18 ✔

Q.27 Identify the figure given in the options which when put in place of ? will logically complete the series.

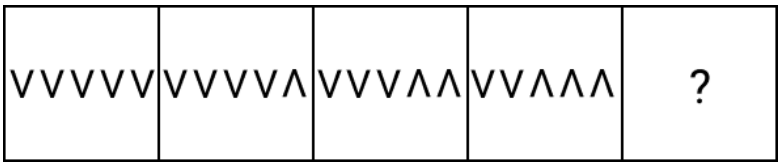

विकल्पों में दी गई उस आकृति की पहचान कीजिए जिसे ? के स्थान पर रखने पर श्रृंखला तार्किक रूप से पूर्ण हो जाएगी।

(1) 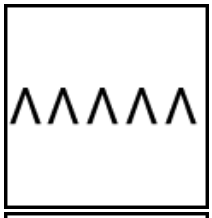

(2) 

(3) 

(4) 

✔

Q.28 What should come in place of ? in the given series based on the English alphabetical order?

XVC TQG PLK LGO ?

अंग्रेजी वर्णमाला क्रम के आधार पर दी गई श्रृंखला में ? के स्थान पर क्या आना चाहिए?

XVC TQG PLK LGO ?

(1) HBS ✔

(2) IBT

(3) GHT

(4) GBT

QuickSarkari.com | WhatsApp Channel | Telegram: t.me/quick_sarkari

Q.29 Based on the English alphabetical order, three of the following four letter cluster pairs are alike in a certain way and thus form a group. Which is the one that does not belong to that group?
(Note: The odd man out is not based on the number of consonants/vowels or their position in the letter cluster)

अंग्रेजी वर्णमाला क्रम के आधार पर, निम्नलिखित चार अक्षर-समूह युग्मों में से तीन किसी निश्चित प्रकार से एकसमान हैं और इस प्रकार एक समूह बनाते हैं। वह कौन-सा युग्म है जो उस समूह से संबंधित नहीं है?
(नोट: असंगत का निर्धारण व्यंजनों/स्वरों की संख्या या अक्षर-समूह में उनके स्थान पर आधारित नहीं है)

(1) JG–HE
(2) XU–VS
(3) KH–IF
(4) UR–RR ✔

Q.30 Based on the alphabetical order, three of the following four are alike in a certain way and thus form a group. Which is the one that does not belong to that group?
(Note: The odd man out is not based on the number of consonants/vowels or their position in the letter cluster)

अंग्रेजी वर्णमाला क्रम के आधार पर, निम्नलिखित चार में से तीन किसी निश्चित प्रकार से एकसमान हैं और इस प्रकार एक समूह बनाते हैं। वह कौन-सा विकल्प है जो उस समूह से संबंधित नहीं है?
(नोट: असंगत का निर्धारण व्यंजनों/स्वरों की संख्या या अक्षर-समूह में उनके स्थान पर आधारित नहीं है)

(1) OLM
(2) PMN
(3) NKL
(4) HJO ✔

Q.31 318 is related to 142 following a certain logic. Following the same logic, 292 is related to 116. To which of the following is 275 related, following the same logic?
(NOTE: Operations should be performed on the whole numbers, without breaking down the numbers into their constituent digits. E.g. 13 – Operations on 13 such as adding/subtracting/multiplying etc. to 13, can be performed. Breaking down 13 into 1 and 3 and then performing mathematical operations on 1 and 3 is not allowed.)

एक निश्चित तर्क के अनुसार 318 का संबंध 142 से है। उसी तर्क के अनुसार, 292 का संबंध 116 से है। समान तर्क का अनुसरण करते हुए, 275 का संबंध निम्नलिखित में से किससे है?
(नोट: संख्याओं को उनके घटक अंकों में तोड़े बिना, पूर्ण संख्याओं पर संक्रियाएं की जानी चाहिए। उदाहरण के लिए 13 लीजिए - 13 पर संक्रियाएं जैसे कि 13 में जोड़ना/घटाना/गुणा करना आदि, की जा सकती हैं। 13 को 1 और 3 में तोड़ना तथा फिर 1 और 3 पर गणितीय संक्रियाएं करने की अनुमति नहीं है।)

(1) 87
(2) 115
(3) 106
(4) 99 ✔

Q.32 What will come in the place of '?' in the following equation, if '+' and '–' are interchanged and '×' and '÷' are interchanged?
47 + 16 × 30 ÷ 15 – 15 = ?
यदि '+' और '–' को आपस में बदल दिया जाए तथा '×' और '÷' को आपस में बदल दिया जाए, तो निम्नलिखित समीकरण में '?' के स्थान पर क्या आएगा?
47 + 16 × 30 ÷ 15 – 15 = ?

(1) 56
(2) 55
(3) 54 ✔
(4) 52

Q.33 BV 38 is related to IR 301 in a certain way. In the same way, LN 46 is related to SJ 365. To which of the following is PK 54 related, following the same logic?
BV 38 एक निश्चित प्रकार से IR 301 से संबंधित है। उसी प्रकार, LN 46, SJ 365 से संबंधित है। समान तर्क का अनुसरण करते हुए, PK 54 निम्नलिखित में से किससे संबंधित है?

(1) XI 427
(2) WG 429 ✔
(3) VJ 419
(4) VH 433

Q.34 If 1 is added to each odd digit and 2 is subtracted from each even digit of the number 3178564, then find the sum of the second digit from the left and the second digit from the right in the new number thus formed.
यदि संख्या 3178564 के प्रत्येक विषम अंक में 1 जोड़ दिया जाता है और प्रत्येक सम अंक से 2 घटा दिया जाता है, तो इस प्रकार बनी नई संख्या में बाईं ओर से दूसरे अंक और दाईं ओर से दूसरे अंक का योग ज्ञात कीजिए।

(1) 8
(2) 14
(3) 12
(4) 6 ✔

Q.35 Select the triad which follows the same pattern as that followed by the two triads given below. Both triads follow the same pattern.
JD – NH – RL GB – KF –OJ
उस त्रिक का चयन कीजिए जो उसी पैटर्न का अनुसरण करता है, जिसका अनुसरण नीचे दिए गए दोनों त्रिक करते हैं। दोनों त्रिक एक ही पैटर्न का अनुसरण करते हैं।
JD – NH – RL GB – KF –OJ

(1) HI – MP – SU
(2) FL –JP – NT ✔
(3) NE – QK – XQ
(4) EB – IG – NL

Q.36 What should come in place of ? in the given series based on the English alphabetical order?
UQO RNL OKI LHF ?

अंग्रेजी वर्णमाला क्रम के आधार पर दी गई शृंखला में ? के स्थान पर क्या आना चाहिए?
UQO RNL OKI LHF ?

(1) **IEC ✔**
(2) KLN
(3) MVC
(4) JCD

Q.37 In the following triad, each group of letters is related to the subsequent one following a certain logic. Select from the given options, the one which follows the same logic.
PAIN - NIPA - PIAN RAGE - EGRA - RGAE

निम्नलिखित त्रिक में, अक्षरों का प्रत्येक समूह एक निश्चित तर्क का अनुसरण करते हुए अगले समूह से संबंधित है। दिए गए विकल्पों में से उस विकल्प का चयन कीजिए जो समान तर्क का अनुसरण करता है।
PAIN - NIPA - PIAN RAGE - EGRA - RGAE

(1) DOLE - DLOE - ELOD
(2) **MOWL - LWMO - MWOL ✔**
(3) LURN - URLN - URNL
(4) MEAT - TAME - EAMT

Q.38 Select the correct mirror image of the given combination when the mirror is placed at 'PQ' as shown below.



जब दर्पण को नीचे दर्शाए अनुसार 'PQ' पर रखा जाता है, तो दिए गए संयोजन की सही दर्पण छवि का चयन कीजिए।

(1) 
(2) 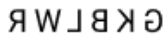
(3) 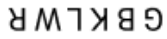
(4) 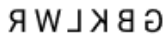 ✔

Q.39 What will come in the place of '?' in the following equation, if '+' and '-' are interchanged and '×' and '÷' are interchanged?
28 ÷ 5 + 147 × 7 - 23 = ?

यदि '+' और '-' को आपस में बदल दिया जाए तथा '×' और '÷' को आपस में बदल दिया जाए, तो निम्नलिखित समीकरण में '?' के स्थान पर क्या आएगा?
28 ÷ 5 + 147 × 7 - 23 = ?

(1) 168
(2) **142 ✔**
(3) 153
(4) 114

QuickSarkari.com | WhatsApp Channel | Telegram: t.me/quick_sarkari

Q.40 5 is related to 25 following a certain logic. Following the same logic, 4 is related to 20. To which of the following is 15 related, following the same logic?

एक निश्चित तर्क के अनुसार 5 का संबंध 25 से है। उसी तर्क के अनुसार, 4 का संबंध 20 से है। समान तर्क का अनुसरण करते हुए, 15 का संबंध निम्नलिखित में से किससे है?

(1) 80

(2) 65

(3) **75 ✔**

(4) 60

General Awareness

Q.41 Which of the following is a defining feature of a socialist economy?

निम्नलिखित में से कौन-सा समाजवादी अर्थव्यवस्था की एक परिभाषित विशेषता है?

(1) There is a complete absence of government intervention in markets / बाजारों में सरकारी हस्तक्षेप का पूर्ण अभाव होता है

(2) **There is state ownership and control over the major means of production / उत्पादन के प्रमुख साधनों पर राज्य स्वामित्व और नियंत्रण होता है ✔**

(3) Private ownership operates solely with the motive of profit / निजी स्वामित्व केवल लाभ के उद्देश्य से संचालित होता है

(4) Economic decisions are determined entirely by tradition and customs / आर्थिक निर्णय पूरी तरह से परंपरा और रीति-रिवाजों द्वारा निर्धारित किए जाते हैं

Q.42 Why is the Shankari Prasad case (1951) significant for understanding the scope of judicial review in India?

भारत में न्यायिक समीक्षा के दायरे को समझने के लिए शंकरी प्रसाद केस (1951) क्यों महत्वपूर्ण है?

(1) **It upheld the power of Parliament to amend Fundamental Rights. / इसने मौलिक अधिकारों में संशोधन करने की संसद की शक्ति को बनाए रखा। ✔**

(2) It extended judicial review to political policy matters. / इसने न्यायिक समीक्षा का राजनीतिक नीतिगत मामलों तक विस्तार किया।

(3) It allowed the review of all amendments like ordinary laws. / इसने सामान्य कानूनों की तरह सभी संशोधनों की समीक्षा की अनुमति दी।

(4) It imposed limitations on Parliament through the basic structure. / इसने बुनियादी ढांचे के माध्यम से संसद पर सीमाएं लगाईं।

Q.43 Under Article 74 of the Constitution of India, which provision governs the President's exercise of executive powers?

भारत के संविधान के अनुच्छेद 74 के अंतर्गत, कौन-सा प्रावधान राष्ट्रपति द्वारा कार्यकारी शक्तियों के प्रयोग को नियंत्रित करता है?

(1) **The President acts upon the advice of the Council of Ministers / राष्ट्रपति मंत्रिपरिषद की सलाह पर कार्य करता है ✔**

(2) The Supreme Court directs executive actions of the President / सर्वोच्च न्यायालय राष्ट्रपति के कार्यकारी कार्यों को निर्देशित करता है

(3) The Council of Ministers exerts executive power without the President / मंत्रिपरिषद राष्ट्रपति के बिना कार्यकारी शक्ति का प्रयोग करती है

(4) The President may act independently in all executive matters / राष्ट्रपति सभी कार्यकारी मामलों में स्वतंत्र रूप से कार्य कर सकता है

Q.44 In the context of India's external sector reforms initiated after 1991, which of the following policy measures helped in integrating the Indian economy more with the global economy?

1991 के बाद शुरू किए गए भारत के बाह्य क्षेत्र सुधारों के संदर्भ में, निम्नलिखित में से कौन-सा नीतिगत उपाय भारतीय अर्थव्यवस्था को वैश्विक अर्थव्यवस्था के साथ अधिक एकीकृत करने में सहायक रहा?

(1) Reducing import tariff rates to encourage greater participation in world trade / विश्व व्यापार में अधिक भागीदारी को प्रोत्साहित करने के लिए आयात प्रशुल्क दरों को कम करना ✔

(2) Strengthening quantitative restrictions on imports of manufactured goods / विनिर्मित वस्तुओं के आयात पर मात्रात्मक प्रतिबंधों को सुदृढ़ करना

(3) Tightening controls on the use of foreign technology in domestic industries / घरेलू उद्योगों में विदेशी प्रौद्योगिकी के उपयोग पर नियंत्रण को कड़ा करना

(4) Restricting the entry of foreign firms into domestic product markets / घरेलू उत्पाद बाजारों में विदेशी फर्मों के प्रवेश को प्रतिबंधित करना

Q.45 On which date was the States Department, responsible for the integration of the Princely States into India, officially constituted?

भारत में देशी रियासतों के एकीकरण के लिए उत्तरदायी रियासती विभाग (States Department) का औपचारिक रूप से गठन किस तिथि को किया गया था?

(1) 1952

(2) 1946

(3) 1950

(4) 1947 ✔

Q.46 Which Indian state receives nearly half of its annual rainfall during the retreating monsoon season (October–December), also known as the winter or northeast monsoon?

कौन-सा भारतीय राज्य अपनी वार्षिक वर्षा का लगभग आधा भाग लौटते मानसून के मौसम (अक्टूबर–दिसंबर) के दौरान प्राप्त करता है, जिसे शीतकालीन या उत्तर-पूर्वी मानसून के नाम से भी जाना जाता है?

(1) Assam / असम

(2) Gujarat / गुजरात

(3) Tamil Nadu / तमिलनाडु ✔

(4) Rajasthan / राजस्थान

Q.47 If the price of a commodity rises while the income of consumers remains constant, then, other factors remaining the same, what will be the most likely effect on the purchasing power of consumers and the demand for that commodity?

यदि किसी वस्तु की कीमत बढ़ जाती है जबकि उपभोक्ताओं की आय स्थिर रहती है, तो अन्य सभी कारक समान रहने पर, उपभोक्ताओं की क्रय शक्ति और उस वस्तु की मांग पर सबसे संभावित प्रभाव क्या होगा?

(1) Purchasing power of consumers increases and demand for the commodity decreases / उपभोक्ताओं की क्रय शक्ति बढ़ती है और वस्तु की मांग घटती है

(2) Purchasing power of consumers increases and demand for the commodity increases / उपभोक्ताओं की क्रय शक्ति बढ़ती है और वस्तु की मांग बढ़ती है

(3) Purchasing power of consumers decreases and demand for the commodity increases / उपभोक्ताओं की क्रय शक्ति घटती है और वस्तु की मांग बढ़ती है

(4) Purchasing power of consumers decreases and demand for the commodity decreases / उपभोक्ताओं की क्रय शक्ति घटती है और वस्तु की मांग घटती है ✔

Q.48 If both the demand curve and the supply curve shift to the right at the same time, what will be the definite effect on the equilibrium quantity in the market?

यदि मांग वक्र और आपूर्ति वक्र दोनों एक ही समय में दाईं ओर विस्थापित होते हैं, तो बाजार में संतुलन मात्रा पर निश्चित प्रभाव क्या होगा?

(1) Equilibrium quantity increases. / संतुलन मात्रा बढ़ती है। ✔

(2) Equilibrium quantity remains the same. / संतुलन मात्रा समान रहती है।

(3) The effect on equilibrium quantity cannot be determined. / संतुलन मात्रा पर प्रभाव निर्धारित नहीं किया जा सकता है।

(4) Equilibrium quantity decreases. / संतुलन मात्रा घटती है।

Q.49 Which of the following European colonial powers did the Dutch conquer Ceylon (Sri Lanka) from in 1658?

डचों ने वर्ष 1658 में निम्नलिखित में से किस यूरोपीय औपनिवेशिक शक्ति से सीलोन (श्रीलंका) को जीता था?

(1) The British / अंग्रेज

(2) The Portuguese / पुर्तगाली ✔

(3) The French / फ्रांसीसी

(4) The Irish Rulers / आयरिश शासक

Q.50 Which of the following Indian National Congress leaders is associated with constitutional methods and gradual reforms rather than the radical ideology of boycott and mass agitation?

निम्नलिखित में से कौन-सा भारतीय राष्ट्रीय कांग्रेस नेता बहिष्कार और जन-आंदोलन की उग्र विचारधारा के बजाय संवैधानिक तरीकों और क्रमिक सुधारों से जुड़ा हुआ है?

(1) Lala Lajpat Rai / लाला लाजपत राय

(2) Bal Gangadhar Tilak / बाल गंगाधर तिलक

(3) Gopal Krishna Gokhale / गोपाल कृष्ण गोखले ✔

(4) Aurobindo Ghosh / अरबिंदो घोष

Q.51 Who was appointed as the first Chairman of the First Law Commission of India, constituted in the year 1955?

वर्ष 1955 में गठित भारत के प्रथम विधि आयोग के प्रथम अध्यक्ष के रूप में किसे नियुक्त किया गयाथा?

(1) J. B. Kripalani / जे. बी. कृपलानी

(2) Jagjivan Ram / जगजीवन राम

(3) M. C. Setalvad / एम. सी. सीतलवाड़ ✔

(4) V. P. Menon / वी. पी. मेनन

Q.52 Who led the Tana Bhagat Movement, a tribal socio-religious uprising in the Chotanagpur region, during the early 20th century?

20वीं शताब्दी के प्रारंभ में छोटानागपुर क्षेत्र में हुए जनजातीय सामाजिक-धार्मिक विद्रोह, ताना भगत आंदोलन का नेतृत्व किसने किया था?

(1) Bir Budhu Bhagat / बीर बुधु भगत

(2) Jatra Bhagat / जतरा भगत ✔

(3) Birsa Munda / बिरसा मुंडा

(4) Raja Jagganath / राजा जगन्नाथ

Q.53 The mountain passes Nathu La and Jelep La are both located in which northeastern Indian state?
नाथू ला और जेलेप ला दोनों पर्वतीय दर्रे किस पूर्वोत्तर भारतीय राज्य में स्थित हैं?

(1) Arunachal Pradesh / अरुणाचल प्रदेश
(2) Sikkim / सिक्किम ✔
(3) Himachal Pradesh / हिमाचल प्रदेश
(4) Jammu and Kashmir / जम्मू और कश्मीर

Q.54 Which of the following best describes a mixed economy, as understood in basic economic theory?
मूलभूत आर्थिक सिद्धांत के अनुसार, निम्नलिखित में से कौन-सा कथन मिश्रित अर्थव्यवस्था का सर्वोत्तम वर्णन करता है?

(1) An economic system in which economic activities are confined mainly to agriculture with minimal industry / एक आर्थिक प्रणाली जिसमें आर्थिक गतिविधियाँ न्यूनतम उद्योग के साथ मुख्य रूप से कृषि तक सीमित होती हैं
(2) An economic system in which the government owns and controls the means of production and distribution / एक आर्थिक प्रणाली जिसमें सरकार उत्पादन और वितरण के साधनों का स्वामित्व और नियंत्रण रखती है
(3) An economic system in which economic activities operate without private ownership and monetary exchange / एक आर्थिक प्रणाली जिसमें आर्थिक गतिविधियाँ निजी स्वामित्व और मौद्रिक विनिमय के बिना संचालित होती हैं
(4) An economic system in which government and private individuals jointly participate in ownership and production / एक आर्थिक प्रणाली जिसमें सरकार और निजी व्यक्ति स्वामित्व और उत्पादन में संयुक्त रूप से भाग लेते हैं ✔

Q.55 Which statement correctly distinguishes the Council of Ministers from the Union Cabinet under the Constitution of India?
भारत के संविधान के अंतर्गत कौन-सा कथन मंत्रिपरिषद और केंद्रीय मंत्रिमंडल के बीच सही अंतर स्पष्ट करता है?

(1) The Council of Ministers includes all ministers, and the Union Cabinet has senior ministers in major departments. / मंत्रिपरिषद में सभी मंत्री शामिल होते हैं, और केंद्रीय मंत्रिमंडल में प्रमुख विभागों के वरिष्ठ मंत्री होते हैं। ✔
(2) The Union Cabinet is a constitutional body, while the Council of Ministers is an extra- constitutional body. / केंद्रीय मंत्रिमंडल एक संवैधानिक निकाय है, जबकि मंत्रिपरिषद एक संविधानेतर निकाय है।
(3) The Council Ministers are appointed by Parliament, and the Union Cabinet is appointed by the President of India. / मंत्रिपरिषद की नियुक्ति संसद द्वारा की जाती है, और केंद्रीय मंत्रिमंडल की नियुक्ति भारत के राष्ट्रपति द्वारा की जाती है।
(4) The Union Cabinet is liable to the Rajya Sabha, and the Council of Ministers is responsible to the Lok Sabha. / केंद्रीय मंत्रिमंडल राज्यसभा के प्रति उत्तरदायी है, और मंत्रिपरिषद लोकसभा के प्रति उत्तरदायी है।

Q.56 Under Article 153 of the Indian Constitution, which of the following correctly reflects the constitutional provision regarding the office of the Governor?
भारतीय संविधान के अनुच्छेद 153 के अंतर्गत, निम्नलिखित में से कौन-सा कथन राज्यपाल के पद से संबंधित संवैधानिक प्रावधान को सही रूप में दर्शाता है?

(1) Every State must have a separate Governor who cannot serve in any other State simultaneously. / प्रत्येक राज्य का एक अलग राज्यपाल होना चाहिए जो एक साथ किसी अन्य राज्य में कार्य नहीं कर सकता।
(2) The Constitution mandates the formation of a collegium to appoint Governors for two or more States. / संविधान दो या अधिक राज्यों के लिए राज्यपालों की नियुक्ति हेतु एक कॉलेजियम के गठन को अनिवार्य बनाता है।
(3) A Governor can be appointed only for one State at a time, except during emergencies. / आपातकाल को छोड़कर, एक राज्यपाल को एक समय में केवल एक राज्य के लिए नियुक्त किया जा सकता है।
(4) The Constitution allows the same person to be appointed as Governor for two or more States. / संविधान एक ही व्यक्ति को दो या अधिक राज्यों के राज्यपाल के रूप में नियुक्त किए जाने की अनुमति देता है। ✔

Q.57 Which issue stood at the core of the Kesavananda Bharati case decided by the Supreme Court of India?
भारत के सर्वोच्च न्यायालय द्वारा निर्णीत केशवानंद भारती मामले के मूल में कौन-सा मुद्दा था?

(1) Parliament's power to amend the Constitution and the existence of the Basic Structure doctrine / संविधान में संशोधन करने की संसद की शक्ति और मूल ढांचे के सिद्धांत का अस्तित्व ✓

(2) Whether the application of Article 356 is valid during a period of national emergency in India / क्या भारत में राष्ट्रीय आपातकाल की अवधि के दौरान अनुच्छेद 356 का प्रयोग वैध है

(3) Whether the approval of amendments by the President operated within constitutional boundaries / क्या राष्ट्रपति द्वारा संशोधनों का अनुमोदन संवैधानिक सीमाओं के भीतर किया गया था

(4) Whether the legality of preventive detention laws is addressed in Article 22 of the Indian Constitution / क्या निवारक निरोध कानूनों की वैधता का प्रावधान भारतीय संविधान के अनुच्छेद 22 में किया गया है

Q.58 The Utkal Plains, the coastal lowlands along the Bay of Bengal, are located in the eastern part of which Indian state?
बंगाल की खाड़ी के किनारे स्थित तटीय निम्नभूमि, उत्कल मैदान, किस भारतीय राज्य के पूर्वी भाग में स्थित हैं?

(1) Tamil Nadu / तमिलनाडु

(2) West Bengal / पश्चिम बंगाल

(3) Andhra Pradesh / आंध्र प्रदेश

(4) Odisha / ओडिशा ✓

Q.59 According to the Census of India 2011, which state recorded the highest sex ratio in the country with 1084 females per 1000 males?
भारत की जनगणना 2011 के अनुसार, किस राज्य में प्रति 1000 पुरुषों पर 1084 महिलाओं के साथदेश का सबसे उच्च लिंगानुपात दर्ज किया गया?

(1) Tamil Nadu / तमिलनाडु

(2) Kerala / केरल ✓

(3) Puducherry / पुडुचेरी

(4) Daman and Diu / दमन और दीव

Q.60 The Great Northern Plains of India extend across several northern and eastern states. Which of the following states is NOT a part of the Great Northern Plains region?
भारत के विशाल उत्तरी मैदान कई उत्तरी और पूर्वी राज्यों में फैले हुए हैं। निम्नलिखित में से कौन साराज्य विशाल उत्तरी मैदान क्षेत्र का हिस्सा नहीं है?

(1) Assam / असम

(2) Gujarat / गुजरात ✓

(3) Punjab / पंजाब

(4) Uttar Pradesh / उत्तर प्रदेश

Q.61 On 31 August 2025, during the Shanghai Cooperation Organization (SCO) Summit in Tianjin, Prime Minister Shri Narendra Modi met Chinese President Xi Jinping. What did both leaders agree regarding the India–China border?

31 अगस्त 2025 को तियानजिन में शंघाई सहयोग संगठन (SCO) शिखर सम्मेलन के दौरान प्रधानमंत्री श्री नरेंद्र मोदी ने चीनी राष्ट्रपति शी जिनपिंग से मुलाकात की। भारत–चीन सीमा के संबंध में दोनों नेताओं ने किस बात पर सहमति व्यक्त की?

(1) To withdraw all Indian troops from border areas / सीमावर्ती क्षेत्रों से सभी भारतीय सैनिकों को वापस बुलाना

(2) To completely resolve the Line of Actual Control (LAC) dispute / वास्तविक नियंत्रण रेखा (LAC) विवाद का पूर्ण समाधान करना

(3) To maintain peace and tranquility along the border / सीमा पर शांति और सौहार्द बनाए रखना ✔

(4) To allow Chinese telecom firms to operate near the border areas / चीनी दूरसंचार कंपनियों को सीमावर्ती क्षेत्रों के निकट संचालन की अनुमति देना

Q.62 Sarwar Khan is a famous folk singer from _____.

सरवर खान _____ के एक प्रसिद्ध लोक गायक हैं।

(1) Bihar / बिहार

(2) Haryana / हरियाणा

(3) Rajasthan / राजस्थान ✔

(4) Uttarakhand / उत्तराखंड

Q.63 On 10 March 2024, India signed the Trade and Economic Partnership Agreement (TEPA) with the European Free Trade Association (EFTA), which came into effect on 1 October 2025. Which of the following countries are part of EFTA involved in this agreement?

10 मार्च 2024 को भारत ने यूरोपीय मुक्त व्यापार संघ (EFTA) के साथ व्यापार और आर्थिक भागीदारी समझौते (TEPA) पर हस्ताक्षर किए, जो 1 अक्टूबर 2025 को प्रभावी हुआ। निम्नलिखित में से कौन-से देश इस समझौते में शामिल EFTA का हिस्सा हैं?

(1) Switzerland, Norway, Iceland, and Liechtenstein / स्विट्जरलैंड, नॉर्वे, आइसलैंड और लिकटेंस्टीन ✔

(2) Germany, France, and Italy / जर्मनी, फ्रांस और इटली

(3) The UK, Ireland, and The Netherlands / यूनाइटेड किंगडम, आयरलैंड और नीदरलैंड

(4) Sweden, Denmark, Liechtenstein and Finland / स्वीडन, डेनमार्क, लिकटेंस्टीन और फिनलैंड

Q.64 According to a Press Information Bureau (PIB) release on 5 February 2026, the Government of India has undertaken various steps to promote Alternative Dispute Resolution, including institutional arbitration through which of the following initiatives?

5 फरवरी 2026 को पत्र सूचना कार्यालय (PIB) द्वारा जारी विज्ञप्ति के अनुसार, भारत सरकार ने वैकल्पिक विवाद समाधान को बढ़ावा देने के लिए विभिन्न कदम उठाए हैं, जिसमें निम्नलिखित में से किस पहल के माध्यम से संस्थागत मध्यस्थता शामिल है?

(1) Launch of Operation Mahadev / ऑपरेशन महादेव का शुभारंभ

(2) Signing of the India–EU Free Trade Agreement / भारत–EU मुक्त व्यापार समझौते पर हस्ताक्षर

(3) Reforms in the National Legal Services Authority / राष्ट्रीय विधिक सेवा प्राधिकरण में सुधार

(4) Establishment of the India International Arbitration Centre / भारत अंतर्राष्ट्रीय मध्यस्थता केंद्र की स्थापना ✔

Q.65 In the SI system of units, the prefix “kilo” in the term kilowatt represents which multiplicative factor?

मात्रकों की SI प्रणाली में, किलोवाट पद में उपसर्ग “किलो” किस गुणन गुणक को दर्शाता है?

(1) 10−6

(2) 103 ✔

(3) 106

(4) 10−3

Q.66 Where did the India Internet Governance Forum (IIGF) 2025 take place?

भारत इंटरनेट गवर्नेंस फोरम (IIGF) 2025 का आयोजन कहाँ हुआ था?

(1) Kolkata / कोलकाता

(2) New Delhi / नई दिल्ली ✔

(3) Mumbai / मुंबई

(4) Pune / पुणे

Q.67 Which of the following ministries will conduct the year-long National Migration Survey from July 2026 to June 2027, marking India's most comprehensive migration study in nearly two decades?

निम्नलिखित में से कौन-सा मंत्रालय जुलाई 2026 से जून 2027 तक वर्ष भर चलने वाला राष्ट्रीय प्रवासन सर्वेक्षण आयोजित करेगा, जो लगभग दो दशकों में भारत का सबसे व्यापक प्रवासन अध्ययन होगा?

(1) Ministry of Social Justice and Empowerment / सामाजिक न्याय और अधिकारिता मंत्रालय

(2) Ministry of Home Affairs / गृह मंत्रालय

(3) Ministry of Statistics and Programme Implementation / सांख्यिकी और कार्यक्रम कार्यान्वयन मंत्रालय ✔

(4) Ministry of Labour and Employment / श्रम और रोजगार मंत्रालय

Q.68 Which law of motion states that "For every action, there is an equal and opposite reaction"?

गति का कौन-सा नियम कहता है कि "प्रत्येक क्रिया की सदैव बराबर और विपरीत प्रतिक्रिया होती है"?

(1) Newton's Second Law / न्यूटन का दूसरा नियम

(2) Newton's Law of Universal Gravitation / न्यूटन का सार्वत्रिक गुरुत्वाकर्षण नियम

(3) Newton's Third Law / न्यूटन का तीसरा नियम ✔

(4) Newton's First Law / न्यूटन का पहला नियम

Q.69 On 18 August 2025, India enacted a landmark legislation to reform sports governance, ensuring transparency, accountability, and athlete welfare. What is the name of this Act?

18 अगस्त 2025 को भारत ने खेल प्रशासन में सुधार हेतु पारदर्शिता, जवाबदेही और खिलाड़ी कल्याण सुनिश्चित करने वाला एक ऐतिहासिक कानून बनाया। इस अधिनियम का नाम क्या है?

(1) National Sports Governance Act, 2025 / राष्ट्रीय खेल शासन अधिनियम, 2025 ✔

(2) National Sports Development Act, 2025 / राष्ट्रीय खेल विकास अधिनियम, 2025

(3) Khelo Bharat Niti, 2025 / खेलो भारत नीति, 2025

(4) Fit India Governance Act, 2025 / फिट इंडिया शासन अधिनियम, 2025

Q.70 Which of the following Indian athletes won gold in the men's javelin throw F64 event during World Para Athletics Championships (WPAC) 2025?

विश्व पैरा एथलेटिक्स चैंपियनशिप (WPAC) 2025 के दौरान निम्नलिखित में से किस भारतीय एथलीट ने पुरुषों की भाला फेंक F64 स्पर्धा में स्वर्ण पदक जीता?

(1) Sumit Antil / सुमित अंतिल ✔

(2) Dharambir / धरमबीर

(3) Amit Saroha / अमित सरोहा

(4) Ekta Bhyan / एकता भ्याण

Q.71 According to a Press Information Bureau (PIB) release dated 12 January 2026, which approach was emphasised by the Union Minister for Environment, Forest and Climate Change as essential for tackling air pollution in the Delhi–NCR region?

12 जनवरी 2026 को पत्र सूचना कार्यालय (PIB) द्वारा जारी विज्ञप्ति के अनुसार, केंद्रीय पर्यावरण, वन और जलवायु परिवर्तन मंत्री ने दिल्ली–NCR क्षेत्र में वायु प्रदूषण से निपटने के लिए किस दृष्टिकोण को आवश्यक बताया?

(1) Long-term and coordinated policy interventions / दीर्घकालिक और समन्वित नीतिगत हस्तक्षेप ✔

(2) Immediate closure of all polluting activities / सभी प्रदूषणकारी गतिविधियों को तत्काल बंद करना

(3) Emergency actions during winter months only / केवल सर्दियों के महीनों में आपातकालीन कार्रवाई

(4) Dependence only on weather-related solutions / केवल मौसम-संबंधी समाधानों पर निर्भरता

Q.72 Which of the following publications on the status of child welfare in India was released by the Ministry of Statistics and Programme Implementation (MoSPI) in September 2025?

भारत में बाल कल्याण की स्थिति के बारे में निम्नलिखित में से कौन-सा प्रकाशन, सांख्यिकी और कार्यक्रम कार्यान्वयन मंत्रालय (MoSPI) द्वारा सितंबर 2025 में जारी किया गया था?

(1) National Child Safety Review 2025 / नेशनल चाइल्ड सेफ्टी रिव्यू 2025 (National Child Safety Review 2025)

(2) India Child Protection Index 2025 / इंडिया चाइल्ड प्रोटेक्शन इंडेक्स 2025 (India Child Protection Index 2025)

(3) Child Welfare Report 2025 / चाइल्ड वेलफेयर रिपोर्ट 2025 (Child Welfare Report 2025)

(4) Children in India 2025 / चिल्ड्रन इन इंडिया 2025 (Children in India 2025) ✔

Q.73 In August 2025, under which of the following schemes were about 100 trainees associated with the Delhi Sikh Gurdwara Management Committee (DSGMC) invited as special guests to the Independence Day celebrations, 2025?

अगस्त 2025 में, निम्नलिखित में से किस योजना के अंतर्गत दिल्ली सिख गुरुद्वारा प्रबंधन समिति (DSGMC) से जुड़े लगभग 100 प्रशिक्षुओं को स्वतंत्रता दिवस समारोह, 2025 में विशेष अतिथि के रूप में आमंत्रित किया गया था?

(1) Pradhan Mantri Kaushal Vikas Yojana (PMKVY) / प्रधानमंत्री कौशल विकास योजना (PMKVY)

(2) Skill India Programme / कौशल भारत कार्यक्रम

(3) Udyamita Yojana / उद्यमिता योजना

(4) Pradhan Mantri Virasat Ka Samvardhan (PM VIKAS) / प्रधानमंत्री विरासत का संवर्धन (PM VIKAS) ✔

Q.74 In January 2026, which of the following ministries issued the notification for the first phase of the Census of India 2027, covering house listing operations and provisions for self-enumeration?

जनवरी 2026 में, निम्नलिखित में से किस मंत्रालय ने मकान सूचीकरण कार्यों और स्व-गणना के प्रावधानों को शामिल करते हुए भारत की जनगणना 2027 के पहले चरण की अधिसूचना जारी की?

(1) Ministry of Housing and Urban Affairs / आवास और शहरी कार्य मंत्रालय

(2) Ministry of Statistics and Programme Implementation / सांख्यिकी और कार्यक्रम कार्यान्वयन मंत्रालय

(3) Ministry of Home Affairs / गृह मंत्रालय ✔

(4) Ministry of Panchayati Raj / पंचायती राज मंत्रालय

Q.75 On 27 August 2025, the Union Cabinet approved the restructuring and extension of the PM SVANidhi scheme. Which of the following is the key feature of the restructured scheme?

27 अगस्त 2025 को केंद्रीय मंत्रिमंडल ने पीएम-स्वनिधि (PM SVANidhi) योजना के पुनर्गठन और विस्तार को मंजूरी दी। पुनर्गठित योजना की प्रमुख विशेषता निम्नलिखित में से कौन-सी है?

(1) Extension of the PM SVANidhi lending period till 31 March 2030 / पीएम-स्वनिधि ऋण अवधि का 31 मार्च 2030 तक विस्तार ✔

(2) Conversion of PM SVANidhi loans into subsidies from 1 January 2025 / 1 जनवरी 2025 से पीएम-स्वनिधि ऋणों का सब्सिडी में परिवर्तन

(3) Closure of the PM SVANidhi scheme on 31 December 2025 / 31 दिसंबर 2025 को पीएम-स्वनिधि योजना का समापन

(4) Launch of PM SVANidhi exclusively for rural areas from 1 April 2026 / 1 अप्रैल 2026 से विशेष रूप से ग्रामीण क्षेत्रों के लिए पीएम-स्वनिधि का शुभारंभ

Q.76 As of 2025, which of the following languages was most recently added to the list of Indian Classical Languages?

वर्ष 2025 तक की स्थिति के अनुसार, निम्नलिखित में से कौन-सी भाषा सबसे हाल ही में भारतीय शास्त्रीय भाषाओं की सूची में जोड़ी गई थी?

(1) Malayalam / मलयालम

(2) Marathi / मराठी ✔

(3) Odia / ओड़िया

(4) Telugu / तेलुगु

Q.77 According to Avogadro's law, equal volumes of all gases, measured at the same temperature and pressure, contain what?

आवोगाद्रो के नियम के अनुसार, समान ताप और दाब पर मापी गई सभी गैसों के समान आयतन में क्या होता है?

(1) Equal densities / समान घनत्व

(2) An equal number of molecules / अणुओं की समान संख्या ✔

(3) Equal masses / समान द्रव्यमान

(4) An equal number of electrons / इलेक्ट्रॉनों की समान संख्या

Q.78 Who among the following Padma Shri winners (2023) is associated with Pandwani?

निम्नलिखित पद्मश्री विजेताओं (2023) में से कौन पंडवानी से संबंधित है/हैं?

(1) Usha Barle / उषा बारले ✔

(2) Bombay Jayashri / बॉम्बे जयश्री

(3) Prahlad Tipanya / प्रह्लाद टिपानिया

(4) Rameshwar Pathak / रामेश्वर पाठक

Q.79 Which of the following is the three-month nationwide campaign launched by NITI Aayog on 28 January 2026 to improve outcomes in health, nutrition, sanitation, education and animal vaccination in India's most underdeveloped districts and blocks?

नीति (NITI) आयोग द्वारा 28 जनवरी 2026 को भारत के सर्वाधिक अल्पविकसित जिलों और ब्लॉकों में स्वास्थ्य, पोषण, स्वच्छता, शिक्षा और पशु टीकाकरण के परिणामों में सुधार लाने के लिए शुरू किया गया तीन महीने का राष्ट्रव्यापी अभियान निम्नलिखित में से क्या है?

(1) Poshan Abhiyaan / पोषण अभियान (Poshan Abhiyaan)

(2) Sampoornata Abhiyan 2.0 / संपूर्णता अभियान 2.0 (Sampoornata Abhiyan 2.0) ✔

(3) Aspirational Districts Mission / आकांक्षी जिला मिशन (Aspirational Districts Mission)

(4) Swachh Bharat Abhiyan / स्वच्छ भारत अभियान (Swachh Bharat Abhiyan)

Q.80 Which national exercise, approved by the Union Cabinet in 2026 with an outlay of ₹11,718.24 crore, will be India's first census to be conducted entirely through digital means using Android and iOS mobile applications?

केंद्रीय मंत्रिमंडल द्वारा 2026 में ₹11,718.24 करोड़ के परिव्यय के साथ अनुमोदित कौन-सी राष्ट्रीय प्रक्रिया, Android और iOS मोबाइल एप्लिकेशन का उपयोग करके पूर्णतः डिजिटल माध्यम से संचालित की जाने वाली भारत की पहली जनगणना होगी?

(1) National Population Register (Digital Update) / राष्ट्रीय जनसंख्या रजिस्टर (डिजिटल अद्यतन)

(2) Civil Registration System Modernisation Programme / नागरिक पंजीकरण प्रणाली आधुनिकीकरण कार्यक्रम

(3) Census of India 2027 / भारत की जनगणना 2027 ✔

(4) Digital Household Enumeration Pilot under MoSPI / MoSPI के अंतर्गत डिजिटल परिवार गणना पायलट

Arithmetical and Numerical Ability

Q.81 Rishi had ₹1,326 with him. He divided it between his two sons Shan and Piyush and asked them to invest it at 4% rate of interest compounded annually. It was seen that Shan and Piyush got same amount after 13 and 14 years, respectively. How much (in ₹) did Rishi give to Piyush?

ऋषि के पास ₹1,326 थे। उसने इसे अपने दो पुत्रों शान और पीयूष के बीच बाँट दिया और उन्हें वार्षिक रूप से संयोजित होने वाली 4% की चक्रवृद्धि ब्याज दर पर निवेश करने को कहा। यह देखा गया कि शान और पीयूष को क्रमशः 13 और 14 वर्षों के बाद समान राशि प्राप्त हुई। ऋषि ने पीयूष को कितनी राशि (₹ में) दी थी?

(1) 500

(2) 676

(3) 650 ✔

(4) 776

Q.82 The average marks obtained by 9 students in an examination is 75. If the total marks of 8 students is 590, find the marks obtained by 9th student.

एक परीक्षा में 9 विद्यार्थियों द्वारा प्राप्त औसत अंक 75 हैं। यदि 8 विद्यार्थियों के कुल अंक 590 हैं, तो 9वें विद्यार्थी द्वारा प्राप्त अंक ज्ञात कीजिए।

(1) 88

(2) 80

(3) 79

(4) 85 ✔

Q.83 Find the simple interest (in ₹) on ₹3000 as a sum borrowed at 9% per year rate of interest for 3 years.

₹3000 की उधार ली गई राशि पर 9% वार्षिक ब्याज दर से 3 वर्षों का साधारण ब्याज (₹ में) ज्ञात कीजिए।

(1) 810 ✔

(2) 850

(3) 770

(4) 750

Q.84 How many prime numbers are there between 1 and 44?

1 और 44 के बीच कितनी अभाज्य संख्याएँ हैं?

(1) 14

(2) 12

(3) 11

(4) 13 ✔

Q.85 Simplify:
$\sqrt[3]{(3375)}/\sqrt[4]{(10000)} \times 5/45 \times 42$
सरल कीजिए:
$\sqrt[3]{(3375)}/\sqrt[4]{(10000)} \times 5/45 \times 42$

(1) 7 ✔
(2) 16
(3) -1
(4) 4

Q.86 The number 36876 is divisible by which of the following numbers?
संख्या 36876 निम्नलिखित में से किस संख्या से विभाज्य है?

(1) 6 ✔
(2) 5
(3) 9
(4) 8

Q.87 In what ratio must a grocer mix two varieties of wheat worth ₹79 per kg and ₹143 per kg so that if he sells the mixture at ₹145 per kg, he may gain 45%?
एक पंसारी को ₹79 प्रति kg और ₹143 प्रति kg मूल्य वाली गेहूं की दो किस्मों को किस अनुपात में मिलाना चाहिए ताकि मिश्रण को ₹145 प्रति kg पर बेचने पर उसे 45% का लाभ हो?

(1) 53:26
(2) 47:27
(3) 43:21 ✔
(4) 45:22

Q.88 The ratio of milk and water in a vessel is 5 : 3. 10 litres of milk and 7 litres of water are added to it, due to which the ratio of milk and water now becomes 8 : 5. Find the initial quantity of milk (in litres) in the mixture.
एक पात्र में दूध और पानी का अनुपात 5 : 3 है। उसमें 10 लीटर दूध और 7 लीटर पानी मिलाया जाता है, जिससे अब दूध और पानी का अनुपात 8 : 5 हो जाता है। मिश्रण में दूध की प्रारंभिक मात्रा (लीटर में) ज्ञात कीजिए।

(1) 36
(2) 30 ✔
(3) 32
(4) 34

Q.89 A fraction is greater than its reciprocal by 11/30 . What is the fraction?
एक भिन्न अपने व्युत्क्रम से 11/30 अधिक है। वह भिन्न क्या है?

(1) 3/5
(2) 5/3
(3) 6/5 ✔
(4) 5/6

Q.90 The HCF and LCM of two 2-digit numbers are 12 and 360, respectively. The numbers are:

दो 2-अंकीय संख्याओं का महत्तम समापवर्तक (HCF) और लघुत्तम समापवर्त्य (LCM) क्रमशः 12 और 360 है। संख्याएँ हैं:

(1) 60 and 72 / 60 और 72 ✔

(2) 48 and 72 / 48 और 72

(3) 30 and 36 / 30 और 36

(4) 36 and 60 / 36 और 60

Q.91 In what ratio must a grocer mix two varieties of wheat worth ₹63 per kg and ₹113 per kg so that if he sells the mixture at ₹137 per kg, he may gain 37%?

एक पंसारी को ₹63 प्रति kg और ₹113 प्रति kg मूल्य वाली गेहूं की दो किस्मों को किस अनुपात में मिलाना चाहिए ताकि मिश्रण को ₹137 प्रति kg पर बेचने पर उसे 37% का लाभ हो?

(1) 23:42

(2) 15:38

(3) 14:39

(4) 13:37 ✔

Q.92 Simplify: 25 – [6 – {4 – (8 – 6 + 3)}]

सरल कीजिए: 25 – [6 – {4 – (8 – 6 + 3)}]

(1) 26

(2) 18 ✔

(3) 22

(4) 24

Quick Sarkari

Q.93 The bar graph given below shows the results of the annual examination held in a secondary school in a certain year. Study the graph and answer the given question.

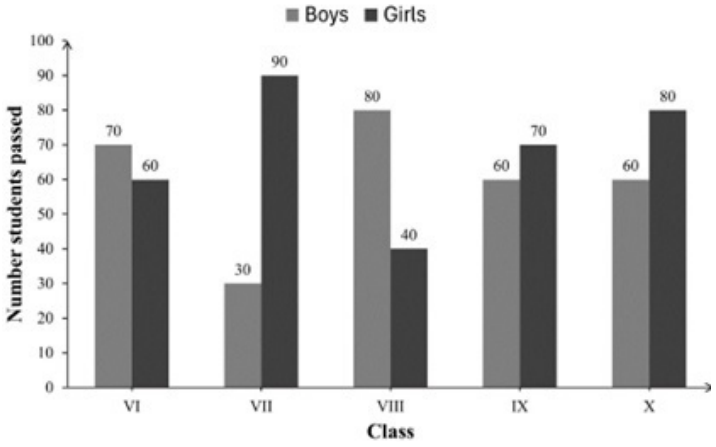

Reference:
Number students passed = Number of students who passed, Boys = Boys, Girls = Girls, Class = Class. Find the average number of boys who passed per class.

नीचे दिए गए दंड आलेख में एक निश्चित वर्ष में किसी माध्यमिक विद्यालय में हुई वार्षिक परीक्षा के परिणाम दर्शाए गए हैं। आलेख का अध्ययन करें और दिए गए प्रश्न का उत्तर दें।

संदर्भ:

Number students passed = उत्तीर्ण होने वाले विद्यार्थियों की संख्या Boys = लड़का Girls = लड़की Class = कक्षा प्रति कक्षा उत्तीर्ण होने वाले लड़कों की औसत संख्या ज्ञात कीजिए।

(1) 50

(2) 55

(3) 65

(4) 60 ✔

Q.94 Hardik deposited a sum of ₹64,200 at 20% rate of interest per annum, compounded annually. The total amount received by Hardik after 2 years is:

हार्दिक ने ₹64,200 की राशि वार्षिक रूप से संयोजित होने वाली 20% वार्षिक चक्रवृद्धि ब्याज दर पर जमा की। 2 वर्ष बाद हार्दिक को प्राप्त कुल मिश्रधन है:

(1) ₹92,301

(2) ₹92,610

(3) ₹92,591

(4) ₹92,448 ✔

Q.95 The present population of persons in a town is 9,000. In the first year, the population decreased by 6%. In the second year, the population as at the end of the first year increased by 1269 persons. Find the total percentage change in the population of the town over these two years.

एक शहर में व्यक्तियों की वर्तमान जनसंख्या 9,000 है। पहले वर्ष में जनसंख्या में 6% की कमी आई।

दूसरे वर्ष में, पहले वर्ष के अंत तक की जनसंख्या में 1269 व्यक्तियों की वृद्धि हुई। इन दो वर्षों में शहर की जनसंख्या में कुल प्रतिशत परिवर्तन ज्ञात कीजिए।

(1) Decrease of 2.1% / 2.1% की कमी

(2) Decrease of 1.1% / 1.1% की कमी

(3) Increase of 6.1% / 6.1% की वृद्धि

(4) Increase of 8.1% / 8.1% की वृद्धि ✔

QuickSarkari.com | WhatsApp Channel | Telegram: t.me/quick_sarkari

Q.96 Study the given pie chart and answer the following question. The pie chart shows comparative information about the production of rice, wheat, sugar and tea of a company.

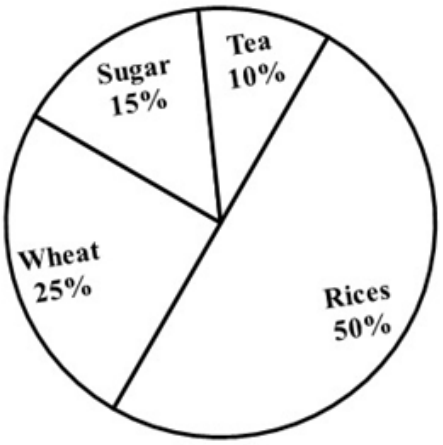

Find the ratio of the sum of the production of rice and tea to the difference of the production of wheat and sugar.

दिए गए पाई चार्ट का अध्ययन करें और निम्नलिखित प्रश्न का उत्तर दें। पाई चार्ट किसी कंपनी के चावल (rice), गेहूं (wheat), चीनी (sugar) और चाय (tea) के उत्पादन की तुलनात्मक जानकारी दर्शाता है।

चावल और चाय के उत्पादन के योग तथा गेहूं और चीनी के उत्पादन के अंतर का अनुपात ज्ञात कीजिए।

(1) 1 : 3

(2) **6 : 1** ✔

(3) 2 : 3

(4) 5 : 1

Q.97 The sum and difference of two numbers is 64 and 32, respectively. Find their HCF.

दो संख्याओं का योग और अंतर क्रमशः 64 और 32 है। उनका महत्तम समापवर्तक (HCF) ज्ञात कीजिए।

(1) 12

(2) 18

(3) **16** ✔

(4) 14

Q.98 The simplified value of 5/19 of (2 4/5 + 2 4/15) + 1/2 ÷ 1 1/2 − 2/3 is:

5/19 का (2 4/5 + 2 4/15) + 1/2 ÷ 1 1/2 − 2/3 का सरलीकृत मान है:

(1) 11/5

(2) **1** ✔

(3) 11/6

(4) −1

Q.99 Simplify:

$\sqrt{((24^2 + 7^2)/(7^2 - 45))}$

सरल कीजिए:

$\sqrt{((24^2 + 7^2)/(7^2 - 45))}$

(1) 13.5

(2) 11.5

(3) **12.5** ✔

(4) 14.5

Q.100 In an examination, out of maximum 80 marks, B obtained 54 marks while A obtained 80 marks. What percentage of A's marks were B's marks?

एक परीक्षा में, अधिकतम 80 अंकों में से B को 54 अंक प्राप्त हुए जबकि A को 80 अंक प्राप्त हुए। B का प्राप्तांक, A के प्राप्तांक का कितना प्रतिशत था?

(1) 148.15%

(2) 80.55%

(3) 100%

(4) 67.5% ✔

Q.101 A boy can do a work in 60 days and a girl in 30 days. If they work on it together for 4 days, then find the fraction of the work that is left.

एक लड़का किसी कार्य को 60 दिनों में और एक लड़की 30 दिनों में कर सकती है। यदि वे दोनों मिलकर 4 दिनों तक उस पर कार्य करते हैं, तो शेष बचे कार्य का भिन्न ज्ञात कीजिए।

(1) 2/5

(2) 1/5

(3) 3/5

(4) 4/5 ✔

Q.102 The mean proportional between 63 and 112 is:

63 और 112 के बीच मध्यानुपाती है:

(1) 56

(2) 84 ✔

(3) 49

(4) 88

Q.103 A and B complete a work in 7 days. If A alone can do it in 28 days then, B alone can do it three-fourth of the same work in _____(days).

A और B एक कार्य को 7 दिनों में पूरा करते हैं। यदि A अकेला इसे 28 दिनों में कर सकता है, तो B अकेला उसी कार्य का तीन-चौथाई भाग _____(दिनों) में कर सकता है।

(1) 28

(2) 21

(3) 7 ✔

(4) 14

Q.104 The list price of a washing machine is ₹17500. It is sold to a retailer after two successive discounts of 50% and 4%. The retailer wants to earn a profit of 35% on his cost price after allowing a 40% discount (on its new list price) to the customer. At what price should he list the washing machine?

एक वाशिंग मशीन का सूची मूल्य ₹17500 है। इसे 50% और 4% की दो क्रमिक छूटों के बाद एक खुदरा विक्रेता को बेचा जाता है। खुदरा विक्रेता ग्राहक को (इसके नए सूची मूल्य पर) 40% की छूट देने के बाद अपने क्रय मूल्य पर 35% का लाभ अर्जित करना चाहता है। उसे वाशिंग मशीन का सूची मूल्य कितना रखना चाहिए?

(1) ₹19021

(2) ₹18855

(3) ₹18718

(4) ₹18900 ✔

Q.105 A shopkeeper bought six identical mobile phones at the rate of ₹84,000, and sold them at the rate of ₹35,000 for every two phones. Find the gain percentage.

एक दुकानदार ने छह एकसमान मोबाइल फोन ₹84,000 की दर से खरीदे, और उन्हें प्रत्येक दो फोन के लिए ₹35,000 की दर से बेच दिया। लाभ प्रतिशत ज्ञात कीजिए।

(1) 22%

(2) 26%

(3) 27%

(4) 25% ✔

Q.106 A train, 180 meters long, crosses another train of length 120 meters, running in the same direction, in 12 seconds. If the speed of the shorter train is 40 km/hour, find the speed of the longer train.

180 मीटर लंबी एक रेलगाड़ी, समान दिशा में चल रही 120 मीटर लंबी दूसरी रेलगाड़ी को 12 सेकंड में पार करती है। यदि छोटी रेलगाड़ी की चाल 40 km/hour है, तो लंबी रेलगाड़ी की चाल ज्ञात कीजिए।

(1) 48 km/hour

(2) 115 km/hour

(3) 50 km/hour

(4) 130 km/hour ✔

Q.107 The material of a cone is converted into the shape of a cylinder of equal radius. If the height of the cylinder is 12 cm, the height of the cone is:

एक शंकु की सामग्री को समान त्रिज्या वाले एक बेलन के आकार में परिवर्तित किया जाता है। यदि बेलन की ऊँचाई 12 cm है, तो शंकु की ऊँचाई है:

(1) 36 cm ✔

(2) 12 cm

(3) 24 cm

(4) 48 cm

Q.108 Divide ₹3,500 into three parts in such a way that half of the first part, one-fourth of the second part, and one-eighth of the third part are equal. Find the value of the first part (in ₹).

₹3,500 को तीन भागों में इस प्रकार विभाजित कीजिए कि पहले भाग का आधा, दूसरे भाग का एक-चौथाई और तीसरे भाग का आठवाँ भाग बराबर हों। पहले भाग का मान (₹ में) ज्ञात कीजिए।

(1) 200

(2) 400

(3) 500 ✔

(4) 700

Q.109 One side of a parallelogram is 32 cm and the corresponding altitude is 8 cm. Find the area of the parallelogram.

एक समांतर चतुर्भुज की एक भुजा 32 cm है और संगत शीर्षलंब 8 cm है। समांतर चतुर्भुज का क्षेत्रफल ज्ञात कीजिए।

(1) 16 cm^2

(2) 96 cm^2

(3) 256 cm^2 ✔

(4) 40 cm^2

Q.110 If the third proportional of 120 and 60 is A, then what is the value of A?

यदि 120 और 60 का तृतीयानुपाती A है, तो A का मान क्या है?

(1) 30 ✔

(2) 25

(3) 20

(4) 15

Q.111 Find the total surface area of a cuboid whose volume is 896 cm^3, breadth is 7 cm and height is 4 cm.

उस घनाभ का संपूर्ण पृष्ठीय क्षेत्रफल ज्ञात कीजिए जिसका आयतन 896 cm^3, चौड़ाई 7 cm और ऊँचाई 4 cm है।

(1) 780 cm^2

(2) 720 cm^2

(3) 740 cm^2

(4) 760 cm^2 ✔

Q.112 The perimeter of one face of a cube is 48 cm. Its volume is:

एक घन के एक फलक का परिमाप 48 cm है। इसका आयतन है:

(1) 1024 cm^3

(2) 4096 cm^3

(3) 1728 cm^3 ✔

(4) 1296 cm^3

Q.113 The ratio of two numbers is 2 : 3 and their product is 864. Find the smallest number between the two numbers.

दो संख्याओं का अनुपात 2 : 3 है और उनका गुणनफल 864 है। दोनों संख्याओं में से छोटी संख्या ज्ञात कीजिए।

(1) 24 ✔

(2) 20

(3) 18

(4) 22

Q.114 A solid iron sphere is melted and recast into a cone whose height is 4 times of its radius. If the radius of the original sphere is 16 cm, find the slant height of the cone (Use √17=4.1).

लोहे के एक ठोस गोले को पिघलाकर एक शंकु में ढाला जाता है जिसकी ऊँचाई उसकी त्रिज्या की 4 गुनी है। यदि मूल गोले की त्रिज्या 16 cm है, तो शंकु की तिर्यक ऊँचाई ज्ञात कीजिए (√17=4.1 का प्रयोग करें)।

(1) 48.3 cm

(2) 60.8 cm

(3) 65.6 cm ✔

(4) 54.2 cm

QuickSarkari.com | WhatsApp Channel | Telegram: t.me/quick_sarkari

Q.115 A shopkeeper offers a discount of 16% on his articles. If the marked price of the article is ₹1,175, the selling price should be:

एक दुकानदार अपनी वस्तुओं पर 16% की छूट देता है। यदि वस्तु का अंकित मूल्य ₹1,175 है, तो विक्रय मूल्य होना चाहिए:

(1) ₹1,059

(2) ₹1,081

(3) ₹954

(4) **₹987** ✔

Q.116 Find the area (in square units) of an equilateral triangle with one side of 8 units.

8 इकाई भुजा वाले एक समबाहु त्रिभुज का क्षेत्रफल (वर्ग इकाई में) ज्ञात कीजिए।

(1) $14\sqrt{3}$

(2) **$16\sqrt{3}$** ✔

(3) $8\sqrt{3}$

(4) $12\sqrt{3}$

Q.117 The cost price of 42 articles is equal to the selling price of 35 of them. The gain or loss percent is given by:

42 वस्तुओं का क्रय मूल्य उनमें से 35 वस्तुओं के विक्रय मूल्य के बराबर है। लाभ या हानि प्रतिशत है:

(1) 25% gain / 25% लाभ

(2) 20% loss / 20% हानि

(3) **20% gain / 20% लाभ** ✔

(4) 25% loss / 25% हानि

Q.118 A spherical tank has a radius of 3.6 meter. How much water can it store in cubic meter (Correct to two places of decimal and use π = 3.14)?

एक गोलाकार टंकी की त्रिज्या 3.6 मीटर है। इसमें कितने घन मीटर पानी संग्रहित किया जा सकता है (दशमलव के दो स्थानों तक सही और π = 3.14 का प्रयोग करें)?

(1) 178.72 m^3

(2) 148.32 m^3

(3) 153.48 m^3

(4) **195.33 m^3** ✔

Q.119 If the radius of the base of a cone be 28 cm and its curved surface area be 3080 cm^2, then the volume of the cone is:
(Use π = 22/7)

यदि एक शंकु के आधार की त्रिज्या 28 cm और इसका वक्र पृष्ठीय क्षेत्रफल 3080 cm^2 है, तो शंकु का आयतन है:
(प्रयोग करें π = 22/7)

(1) **17248 cm^3** ✔

(2) 38808 cm^3

(3) 12936 cm^3

(4) 51744 cm^3

Q.120 A man goes from A to B at a uniform speed of 14 kmph and returns with a uniform speed of 6 kmph. His average speed for the whole journey is:

एक व्यक्ति A से B तक 14 kmph की एकसमान चाल से जाता है और 6 kmph की एकसमान चाल से वापस लौटता है। पूरी यात्रा के लिए उसकी औसत चाल है:

(1) 8.6 kmph

(2) 8.2 kmph

(3) 8.4 kmph ✔

(4) 8 kmph

English Language and Comprehension

Q.121 In the given question, a statement is divided into different segments. The first segment is fixed; rearrange the other segments to form a coherent statement.

A. Almost all the women that

B. and discussed their domestic troubles freely

C. of one sort or another,

D. she knew admitted unhappiness

(1) ABDC

(2) ADCB ✔

(3) ACBD

(4) ACDB

Q.122 Choose the most appropriate option to fill in the given blanks.

We arrived _____ at the venue, only to find that the event had been postponed until _____.

(1) hardly; afterwards

(2) slow; soon

(3) late; tomorrow ✔

(4) later; next week

Q.123 In the given question, a statement divided into different segments is given. The first segment is fixed, rearrange the other segments to form a coherent statement.

The teacher encouraged her

(A) solid evidence and logical reasoning

(B) students to think critically, asking

(C) and support their arguments with

(D) them to question assumptions

(1) BDCA ✔

(2) ABDC

(3) BACD

(4) ABCD

Q.124 In the given question, a statement divided into different segments is given. The first segment is fixed; rearrange the other segments to form a coherent statement.
A. There was a general opinion
B. and its removal was
C. that he couldn't have looked worse with a tail,
D. therefore a gratuitous effrontery

(1) ADCB
(2) ABDC
(3) **ACBD ✔**
(4) ABCD

Q.125 Select the option which means the same as the group of words given.
Causing feelings of happiness and pleasure.

(1) Elegance
(2) Hospitality
(3) Celebration
(4) **Heartwarming ✔**

Q.126 In the given question, a statement divided into different segments is given.
Rearrange all the segments to form a coherent statement.
(A) sacrifice, the athlete finally achieved
(B) her dream of winning a gold medal
(C) after years of dedication and
(D) at the international championship

(1) BDAC
(2) **CABD ✔**
(3) DBAC
(4) BCDA

Q.127 Choose the correct adjective to complete the sentence.
The few mangoes which were not spoiled fetched a _____ price that profited the farmer.

(1) **high ✔**
(2) small
(3) fair
(4) low

Q.128 Choose the one word that can best replace the underlined segment without changing the meaning of the sentence.
The doctor advised him to avoid eating too much food regularly.

(1) hunger
(2) greed
(3) appetite
(4) **gluttony ✔**

QuickSarkari.com | WhatsApp Channel | Telegram: t.me/quick_sarkari

Q.129 In the given question, a statement divided into different segments is given.
Rearrange all the segments to form a coherent statement.
make them the Roof of the World(A)/ one of the most beautiful mountain ranges in the world(B)/ and they stretch across several Asian countries(C)/ the Himalayas are(D)/where their great height and spiritual importance(E)/

(1) BCEAD
(2) CEADB
(3) **DBCEA ✔**
(4) ABCDE

Q.130 Select the option which can be used as a one-word substitute for the given group of words.
A person who is skilled in judging and appreciating art, food, or music is referred to as a:

(1) Virtuoso
(2) Critique
(3) Veteran
(4) **Connoisseur ✔**

Q.131 Which version of the given sentence uses the correct form of future tense?
By this time next year, I shall bought a new car.

(1) **By this time next year, I shall have bought a new car. ✔**
(2) By this time next year, I shall buying a new car.
(3) By this time next year, I shall has bought a new car.
(4) By this time next year, I shall be buy a new car.

Q.132 Choose the most appropriate option to fill in the given blank.
She _____ visits her ancestral home; perhaps only once every decade since she moved abroad.

(1) much
(2) rare
(3) **seldom ✔**
(4) often

Q.133 Choose the correct adjective to complete the sentence.
The owner was happy because his dog won a ____ prize at the competition.

(1) small
(2) **valuable ✔**
(3) cheap
(4) ordinary

Q.134 Select the option which means the same as the group of words given.
The state of being legally responsible for something

(1) Liberty
(2) Loan
(3) Inflation
(4) **Liability ✔**

Q.135 Select the most appropriate verb to fill in the blank.
If Arvind works harder, he _____ score better marks.

(1) should
(2) **will ✔**
(3) might have
(4) had

Q.136 Select the option which can be used as a one-word substitute for the given group of words.
The place where birds are kept is known as a/an:

(1) Farm
(2) **Aviary ✔**
(3) Kennel
(4) Stable

Q.137 Select the option which means the same as the group of words given.
An area of activity, interest or knowledge.

(1) Profession
(2) **Realm ✔**
(3) Department
(4) Territory

Q.138 Choose the one word that can best replace the underlined segment without changing the meaning of the sentence.
Despite repeated reminders about collective responsibility, the principal cautioned students against showing excessive pride in their personal accomplishments, warning that such attitudes often erode collaborative learning environments.

(1) modesty
(2) caution
(3) adulation
(4) **hubris ✔**

Q.139 Choose the most appropriate option to fill in the given blank.
The team practiced relentlessly; _____, they still failed to qualify for the final round.

(1) consequently
(2) **however ✔**
(3) moreover
(4) since

Q.140 In the given question, a statement divided into different segments is given.
Rearrange all the segments to form a coherent statement.
A. come leaping along, and
B. on the ground, a hare would often
C. jump right over the little Tree
D. in winter, when the snow lay glittering

(1) BCDA
(2) ADBC
(3) CADB
(4) **DBAC ✔**

Q.141 Choose the correct direct narration of the given sentence and fill in the blank.
Samson confessed that he had taken my notebook by mistake.
Samson confessed, _____

(1) "I take your notebook by mistake."
(2) "I am taking your notebook by mistake."
(3) "I will take your notebook by mistake."
(4) **"I took your notebook by mistake." ✔**

Q.142 Choose the correct option to convert the following passive voice sentence into active voice.
The new species of orchid was discovered by researchers in the Western Ghats.

(1) Researchers discovers the new species of orchid in the Western Ghats.
(2) **Researchers discovered the new species of orchid in the Western Ghats. ✔**
(3) Researchers have discovering the new species of orchid in the Western Ghats.
(4) Researchers were discovering the new species of orchid in the Western Ghats.

Q.143 Choose the correct indirect narration of the given sentence and fill in the blank.
Arjunan said, "My friends are waiting outside."
Arjunan said _____.

(1) that my friends were waiting outside.
(2) **that his friends were waiting outside. ✔**
(3) that his friends are waiting outside.
(4) that their friends were waiting outside.

Q.144 Select the wrongly spelt word.

(1) Anxiety
(2) Cobbler
(3) Resource
(4) **Ignit ✔**

Q.145 Rectify the sentence by selecting the correct spelling from the options.
Agapie had seen the Dresden figure in Madame Valtour's possession and at once guessed the whole akusation.

(1) **accusation ✔**
(2) acusation
(3) accusetion
(4) accusasion

Q.146 Choose the most appropriate option to fill in the given blank.
Direct form: The teacher said, "I will review your essays here tomorrow."
Indirect form: _____

(1) The teacher said that she would review my essays here tomorrow.
(2) The teacher said that she would review my essays there the next day. ✔
(3) The teacher said that I would review your essays there the next day.
(4) The teacher said that she reviewed my essays there the next day.

Q.147 Select the option that expresses the given sentence in passive voice.
Marwa cleaned the classroom before lunch.

(1) The classroom was cleaned before lunch by Marwa. ✔
(2) The classroom is cleaning Marwa before lunch.
(3) The classroom have been cleaned before lunch by Marwa.
(4) The classroom has been cleaning before lunch by Marwa.

Q.148 Read the given options carefully and choose the sentence that contains a spelling mistake.

(1) The bakery displayed a variety of delicious pasteries. ✔
(2) The villagers celebrated the festival with great enthusiasm.
(3) The writer completed the final draft of the novel.
(4) The soldier showed immense courage during the rescue operation.

Q.149 Rectify the sentence by selecting the correct spelling from the options.
The moment that the wagon rattled out of the yard away to the station, Madame Solisainte settled herself into a state of nervous expectansy.

(1) expactency
(2) expactancy
(3) expectancy ✔
(4) expectency

Q.150 Rectify the sentence by selecting the correct spelling from the options.
The stadium is so big that it can seat more than one lakh spectaters.

(1) speactators
(2) spectetors
(3) spectators ✔
(4) spectaeters

Quick Sarkari

Q.151

Read the following passage carefully and answer the questions that follow.
Most large-scale Artificial Intelligence (AI) deployments are housed in data centres, including those operated by cloud service providers. These data centres can take a heavy toll on the planet. The electronics they house rely on a staggering amount of grist: making a 2 kg computer requires 800 kg of raw materials. As well, the microchips that power AI need rare earth elements, which are often mined in environmentally destructive ways, noted Navigating New Horizons.
The second problem is that data centres produce electronic waste, which often contains hazardous substances, like mercury and lead.
Third, data centres use water during construction and, once operational, to cool electrical components. Globally, AI-related infrastructure may soon consume six times more water than Denmark, a country of 6 million, according to one estimate. That is a problem when a quarter of humanity already lacks access to clean water and sanitation.

Which of the following most accurately states the main idea of the passage?

(1) Data centres mostly improve global water access and sustainability.

(2) Artificial Intelligence development benefits outweigh all environmental concerns mentioned.

(3) Artificial Intelligence infrastructure significantly harms the environment through resource strain. ✔

(4) Artificial Intelligence will fully replace traditional computing systems very soon.

Q.152

Read the following passage carefully and answer the questions that follow.
Most large-scale Artificial Intelligence (AI) deployments are housed in data centres, including those operated by cloud service providers. These data centres can take a heavy toll on the planet. The electronics they house rely on a staggering amount of grist: making a 2 kg computer requires 800 kg of raw materials. As well, the microchips that power AI need rare earth elements, which are often mined in environmentally destructive ways, noted Navigating New Horizons.
The second problem is that data centres produce electronic waste, which often contains hazardous substances, like mercury and lead.
Third, data centres use water during construction and, once operational, to cool electrical components. Globally, AI-related infrastructure may soon consume six times more water than Denmark, a country of 6 million, according to one estimate. That is a problem when a quarter of humanity already lacks access to clean water and sanitation.

Which is the best description of the tone of the passage?

(1) Humorous

(2) Sarcastic

(3) Cautionary ✔

(4) Celebratory

Q.153

Read the following passage carefully and answer the questions that follow.
Most large-scale Artificial Intelligence (AI) deployments are housed in data centres, including those operated by cloud service providers. These data centres can take a heavy toll on the planet. The electronics they house rely on a staggering amount of grist: making a 2 kg computer requires 800 kg of raw materials. As well, the microchips that power AI need rare earth elements, which are often mined in environmentally destructive ways, noted Navigating New Horizons.
The second problem is that data centres produce electronic waste, which often contains hazardous substances, like mercury and lead.
Third, data centres use water during construction and, once operational, to cool electrical components. Globally, AI-related infrastructure may soon consume six times more water than Denmark, a country of 6 million, according to one estimate. That is a problem when a quarter of humanity already lacks access to clean water and sanitation.

What is the synonym of the word 'staggering' from the passage?

(1) Astonishing ✔
(2) Segregated
(3) Simplified
(4) Adventurous

Q.154

Read the following passage carefully and answer the questions that follow.
Most large-scale Artificial Intelligence (AI) deployments are housed in data centres, including those operated by cloud service providers. These data centres can take a heavy toll on the planet. The electronics they house rely on a staggering amount of grist: making a 2 kg computer requires 800 kg of raw materials. As well, the microchips that power AI need rare earth elements, which are often mined in environmentally destructive ways, noted Navigating New Horizons.
The second problem is that data centres produce electronic waste, which often contains hazardous substances, like mercury and lead.
Third, data centres use water during construction and, once operational, to cool electrical components. Globally, AI-related infrastructure may soon consume six times more water than Denmark, a country of 6 million, according to one estimate. That is a problem when a quarter of humanity already lacks access to clean water and sanitation.

Which among the following represents the structure of the passage?

(1) Persuasive
(2) Problem–evidence ✔
(3) Comparison
(4) Narrative and chronology

QuickSarkari.com | WhatsApp Channel | Telegram: t.me/quick_sarkari

Q.155

Read the following passage carefully and answer the questions that follow.
Most large-scale Artificial Intelligence (AI) deployments are housed in data centres, including those operated by cloud service providers. These data centres can take a heavy toll on the planet. The electronics they house rely on a staggering amount of grist: making a 2 kg computer requires 800 kg of raw materials. As well, the microchips that power AI need rare earth elements, which are often mined in environmentally destructive ways, noted Navigating New Horizons.
The second problem is that data centres produce electronic waste, which often contains hazardous substances, like mercury and lead.
Third, data centres use water during construction and, once operational, to cool electrical components. Globally, AI-related infrastructure may soon consume six times more water than Denmark, a country of 6 million, according to one estimate. That is a problem when a quarter of humanity already lacks access to clean water and sanitation.

What is the antonym of the word 'hazardous'?

(1) Safe ✔
(2) Hybrid
(3) Secret
(4) Heating

Q.156

Read the following passage and answer the questions that follow.
Caterpillars are the larval form of moths, butterflies, and skippers. Like all insects, they have three pairs of true, jointed legs, which are attached to the three thoracic segments of their cylindrical bodies. Most species also have several pairs of fleshy prolegs on their abdominal segments. Prolegs are usually tipped with curved rows of minute hooklets to help the animals hold on to surfaces, such as twigs and leaves. The caterpillars of many familiar lepidopterans, such as monarchs and hawk moths, have prolegs on segments 3 through 6 and 10 of the abdomen (that is, four pairs on the mid- abdomen and one pair near the bottom), though the number may be reduced in some species. For example, inchworms and cabbage loopers have only two or three pairs of prolegs, which is why these caterpillars draw their hind end up to meet the front before extending forward again.

What does the passage suggest about the prolegs of inchworms and cabbage loopers?

(1) They have more prolegs than other caterpillars.
(2) Their prolegs are much larger.
(3) They have no prolegs at all.
(4) They have fewer prolegs than other caterpillars. ✔

Q.157

Read the following passage and answer the questions that follow.
Caterpillars are the larval form of moths, butterflies, and skippers. Like all insects, they have three pairs of true, jointed legs, which are attached to the three thoracic segments of their cylindrical bodies. Most species also have several pairs of fleshy prolegs on their abdominal segments. Prolegs are usually tipped with curved rows of minute hooklets to help the animals hold on to surfaces, such as twigs and leaves. The caterpillars of many familiar lepidopterans, such as monarchs and hawk moths, have prolegs on segments 3 through 6 and 10 of the abdomen (that is, four pairs on the mid- abdomen and one pair near the bottom), though the number may be reduced in some species. For example, inchworms and cabbage loopers have only two or three pairs of prolegs, which is why these caterpillars draw their hind end up to meet the front before extending forward again.

What is the tone of the passage?

(1) Humorous
(2) Informative ✔
(3) Persuasive
(4) Narrative

Q.158

Read the following passage and answer the questions that follow.
Caterpillars are the larval form of moths, butterflies, and skippers. Like all insects, they have three pairs of true, jointed legs, which are attached to the three thoracic segments of their cylindrical bodies. Most species also have several pairs of fleshy prolegs on their abdominal segments. Prolegs are usually tipped with curved rows of minute hooklets to help the animals hold on to surfaces, such as twigs and leaves. The caterpillars of many familiar lepidopterans, such as monarchs and hawk moths, have prolegs on segments 3 through 6 and 10 of the abdomen (that is, four pairs on the mid- abdomen and one pair near the bottom), though the number may be reduced in some species. For example, inchworms and cabbage loopers have only two or three pairs of prolegs, which is why these caterpillars draw their hind end up to meet the front before extending forward again.

What inference can be made from the description of prolegs in caterpillars?

(1) Prolegs are found only on butterflies of certain species.
(2) Caterpillars with prolegs cannot move.
(3) Prolegs are unnecessary for the caterpillar's movement.
(4) Prolegs help caterpillars move more efficiently on surfaces. ✔

Q.159

Read the following passage and answer the questions that follow.
Caterpillars are the larval form of moths, butterflies, and skippers. Like all insects, they have three pairs of true, jointed legs, which are attached to the three thoracic segments of their cylindrical bodies. Most species also have several pairs of fleshy prolegs on their abdominal segments. Prolegs are usually tipped with curved rows of minute hooklets to help the animals hold on to surfaces, such as twigs and leaves. The caterpillars of many familiar lepidopterans, such as monarchs and hawk moths, have prolegs on segments 3 through 6 and 10 of the abdomen (that is, four pairs on the mid- abdomen and one pair near the bottom), though the number may be reduced in some species. For example, inchworms and cabbage loopers have only two or three pairs of prolegs, which is why these caterpillars draw their hind end up to meet the front before extending forward again.

What would be the best title for the passage?

(1) The Life of a Caterpillar
(2) The Stages of Butterfly Development
(3) **Caterpillar Anatomy and Adaptations ✔**
(4) The Importance of Cylindrical Bodies

Q.160

Read the following passage and answer the questions that follow.
Caterpillars are the larval form of moths, butterflies, and skippers. Like all insects, they have three pairs of true, jointed legs, which are attached to the three thoracic segments of their cylindrical bodies. Most species also have several pairs of fleshy prolegs on their abdominal segments. Prolegs are usually tipped with curved rows of minute hooklets to help the animals hold on to surfaces, such as twigs and leaves. The caterpillars of many familiar lepidopterans, such as monarchs and hawk moths, have prolegs on segments 3 through 6 and 10 of the abdomen (that is, four pairs on the mid- abdomen and one pair near the bottom), though the number may be reduced in some species. For example, inchworms and cabbage loopers have only two or three pairs of prolegs, which is why these caterpillars draw their hind end up to meet the front before extending forward again.

Which of the following is NOT mentioned as a feature of caterpillar anatomy?

(1) Curved hooklets on prolegs
(2) **Wings ✔**
(3) Jointed legs
(4) Fleshy prolegs

Hindi Language and Comprehension

Q.161 वाक्यांश के लिए सार्थक शब्द दें।
जो कल्पना से परे हो

(1) अकल्पनीय
(2) **कल्पनातीत ✔**
(3) अकल्पित
(4) कल्पना पर

Q.162 'दूध पिलाकर साँप पोसना' लोकोक्ति का क्या अर्थ है?

(1) शत्रु पर उपकार करना ✔

(2) दूध से दही बनाना

(3) शत्रु बनाना

(4) तुम्हारी बात सच हो

Q.163 दिये गये वाक्यांश के लिए एक शब्द चुनें-- 'बहुत काम करते रहने वाला'

(1) कर्मठ ✔

(2) कुशल

(3) कृत्यक

(4) काहिल

Q.164 निम्नलिखित वाक्य के रिक्त स्थान में उचित क्रिया की पूर्ति कीजिए - 'वह _____ रही थी।'

(1) आता

(2) जाता

(3) खेल-कूद ✔

(4) खाता

Q.165 सर्वोचित क्रिया-विशेषण शब्द से दिये गये वाक्य का रिक्त स्थान पूर्ण करें-- दिल्ली से आगरा तक की दूरी तय करने में ..... चार घंटे लगते हैं।

(1) स्वत:

(2) निपट

(3) कुछ

(4) लगभग ✔

Q.166 निम्नलिखित वाक्य के रिक्त स्थान में उचित क्रिया-विशेषण की पूर्ति कीजिए- 'नगर यहाँ से _____ पड़ता है ।'

(1) कमजोर

(2) भर

(3) अधिक

(4) दूर ✔

Q.167 'जो कभी बूढ़ा न हो' वाक्यांश के लिए सार्थक शब्द का चयन करें-

(1) अज्ञात

(2) अच्युत

(3) अजेय

(4) अजर ✔

Q.168 'नाच नचाना' मुहावरे का क्या अर्थ है?

(1) मनचाही करवाना ✔

(2) दोनों तरफ़ रहना

(3) जल्दी मरने वाला

(4) किसी गीत पर नाचना

Q.169 'जिस पर कोई रोक-टोक न हो' वाक्यांश के लिए सार्थक शब्द होगा-

(1) अनिस्तीर्ण

(2) अनियमित

(3) अनित्यवादी

(4) **अनियंत्रित ✔**

Q.170 निम्नलिखित मुहावरे का सही अर्थ है - कान काटना -

(1) **बहुत चतुर होना ✔**

(2) बहुत घाटा होना

(3) बिल्कुल परवाह न करना

(4) सजा देना

Q.171 'दूर के ढोल सुहावने' लोकोक्ति का क्या अर्थ है?

(1) **दूर से चीज़ अच्छी लगती है ✔**

(2) ढोल बजाना

(3) दूर जाना

(4) थकने पर विश्राम करना

Q.172 सर्वोचित कारक चिह्न से दिये गये वाक्य का रिक्त स्थान पूर्ण करें-- बच्चों को हर रोज़ खेलने ..... साथ ही पौष्टिक भोजन भी करना चाहिए।

(1) को

(2) से

(3) **के ✔**

(4) में

Q.173 'चिराग तले अंधेरा' लोकोक्ति का अर्थ है--

(1) **अपनी बुराई नहीं दिखायी देती ✔**

(2) चिराग के नीचे अंधेरा होता है

(3) घर का ही कोई नुकसान करता है

(4) चिराग पास की चीज़े नहीं दिखा पाता

Q.174 सर्वोचित कारक चिह्न से दिये गये वाक्य का रिक्त स्थान पूर्ण करें-- कल मैंने बाज़ार ..... एक सुंदर लाल रंग की साड़ी खरीदी।

(1) पर

(2) में

(3) **से ✔**

(4) द्वारा

Q.175 निम्न में से कौन-सा मुहावरा अपने अर्थ से असुमेलित है?

(1) **नाक का बाल होना -- कष्ट पहुँचाने वाला होना ✔**

(2) दो दिन का मेहमान -- जल्दी मरने वाला

(3) नस पहचानना -- अच्छी तरह जानना

(4) नाक कटना -- बदनामी होना

Q.176 नीचे दिए गए वाक्य खंडों का क्रम सही करें।
अ. पुनर्जागरणब. दो जातीय संस्कृतियों कीस. रचनात्मक ऊर्जा हैद. टकराहट से उत्पन्न

(1) अ, ब, स, द
(2) अ, ब, द, स ✔
(3) स, द, अ, ब
(4) ब, अ, द, स

Q.177 सर्वोचित क्रिया शब्द से दिये गये वाक्य का रिक्त स्थान पूर्ण करें-- शिक्षक ने छात्रों को मेहनत से पढ़ने और आगे ..... की सलाह दी।

(1) चलने
(2) बढ़ने ✔
(3) दौड़ने
(4) बड़ने

Q.178 दिए गए वाक्यांश के लिए एक शब्द होगा-- 'ज्ञान प्राप्त करने की इच्छा रखने वाला'

(1) सर्वज्ञ
(2) जिज्ञासु ✔
(3) जागरूक
(4) उत्सुक

Q.179 दिए गए प्रश्न में, विभिन्न खंडों में विभाजित एक कथन दिया गया है। एक सुसंगत कथन बनाने के लिए सभी खंडों को पुनर्व्यवस्थित करें।
अपने गुणों (क) जगह आदर(ग) सत्कार होता था(ख) उसका सब(ङ) के कारण(घ)।

(1) क ख ग घ ङ
(2) क ङ घ ग ख
(3) क घ ङ ग ख ✔
(4) क ख ग ङ घ

Q.180 सर्वोचित क्रिया-विशेषण शब्द से दिये गये वाक्य का रिक्त स्थान पूर्ण करें-- सफलता पाने के लिए ..... कड़ी मेहनत और लगन की ज़रूरत होती है।

(1) केवल ✔
(2) टुक
(3) लगभग
(4) बढ़कर

Q.181 'मेरे मित्र ने मुझे समय पर आने का अनुरोध किया।'
उपर्युक्त वाक्य में रेखांकित शब्द का पर्यायवाची है-

(1) समीक्षा
(2) विश्राम
(3) आश्रय
(4) निवेदन ✔

Q.182 निम्नलिखित वाक्य में रेखांकित शब्द के लिए उपयुक्त विलोम शब्द चुनें।
सुंदरता व्यक्ति के कर्मों में देखनी चाहिए।

(1) सभ्यता
(2) सौंदर्य
(3) कुरूपता ✔
(4) ईमानदारी

Q.183 निम्नलिखित वाक्य में रेखांकित शब्द के लिए उपयुक्त पर्यायवाची शब्द चुनें।
उसकी पीड़ा को तुम नहीं समझ सकते।

(1) दक्षता
(2) कर्ण
(3) लिप्सा
(4) **वेदना ✔**

Q.184 वर्तनी की दृष्टि से दिये गये वाक्य का शुद्ध रूप पहचानें।
कला ओर चित्रकारी मन की भावनाओं को अभिव्यक्त करने का सुंदर तरीक़ा है।

(1) कला और चित्रकारी मन की भावनओं को अभिव्यक्त करने का सुंदर तरीक़ा है।
(2) कला और चित्रकारी मन की भावनाओं को अभीव्यक्त करने का सुंदर तरीक़ा है।
(3) **कला और चित्रकारी मन की भावनाओं को अभिव्यक्त करने का सुंदर तरीक़ा है। ✔**
(4) कला और चित्रकारि मन की भावनाओं को अभिव्यक्त करने का सुंदर तरीक़ा है।

Q.185 निम्नलिखित वाक्य के किस भाग में वर्तनी की त्रुटि है?
हमारे देश का उथान कब होगा?

(1) **उथान ✔**
(2) हमारे
(3) देश का
(4) कब होगा?

Q.186 'बलिदान और आत्म-नियंत्रण के साथ की गई मेहनत को तपश्या कहते हैं।'
उपर्युक्त वाक्य में रेखांकित शब्द की त्रुटि पहचानकर सही विकल्प का चयन करें-

(1) तपसया
(2) **तपस्या ✔**
(3) तपशया
(4) ताप्श्या

Q.187 निम्नलिखित वाक्य में रेखांकित शब्द के लिए उपयुक्त पर्यायवाची शब्द चुनें।
तालाब में कमल खिले हुए हैं।

(1) **सरोवर ✔**
(2) विदेह
(3) उत्थान
(4) कामना

Q.188 'ज्येष्ठ' के पर्याय से वाक्य का रिक्त स्थान पूर्ण करें-- ज़िया स्वाभाव से बहुत शांत और अपने ..... के प्रति अत्यधिक समर्पित है।

(1) अनुज
(2) **अग्रज ✔**
(3) सहयोगी
(4) कनिष्ठ

Q.189 'तम' के विलोम शब्द से वाक्य का रिक्त स्थान पूर्ण करें-- डॉ. अम्बेडकर ने समाज में समानता की ..... उत्पन्न करने का कार्य किया।

(1) अनुभूति
(2) आवश्यकता
(3) **ज्योति ✔**
(4) इच्छा

Q.190 वर्तनी की दृष्टि से दिये गये वाक्य का शुद्ध रूप पहचानें।
संगीत सूनने से मन को शांति और आराम मिलता है, यह तनाव कम करता है।

(1) संगीत सुनने से मन को शांति और आराम मिलता है, यह तनाव कम करता है। ✔
(2) संगीत सुनने से मन को शांति और अराम मिलता है, यह तनाव कम करता है।
(3) सन्गीत सुनने से मन को शांति और आराम मिलता है, यह तनाव कम करता है।
(4) संगीत सुनने से मन को शांती और आराम मिलता है, यह तनाव कम करता है।

Q.191

निम्नलिखित गद्यांश को ध्यानपूर्वक पढ़ें और उससे संबंधित प्रश्नों के उत्तर दें- भारत की 85% जनता गाँवों में रहती है। भारत की सच्ची तस्वीर गाँवों में ही देखी जा सकती है। हमारे कवियों ने गाँवों के अत्यंत लुभावने चित्र खींचे हैं। किसी ने उन्हें भारत की आत्मा कहा तो किसी ने देश का हृदय-स्पंदन। भारत के गाँव प्रकृति के झूले हैं। हरे- भरे खेत, झूमती सरसों, बरसता सावन, खुली हवा, सुगंधित हवा के झोंके, निर्दोष वातावरण, प्रदूषण से मुक्त रहन-सहन, शांत- मनोरम ऋतु चक्र, कूकती कोयल, नाचते मोर, धन्य-धान्य से भरे खेत-खलिहान यह है गाँव का मनोरम सत्य। इन बातों को देखकर प्रत्येक व्यक्ति का मन गाँवों में बसने की करता है। ऐसा प्रतीत होता है मानो चारों ओर शांति और खुशहाली का साम्राज्य हो। गाँवों का सामाजिक और सांस्कृतिक जीवन भी अत्यंत मनोहारी है। यहाँ के निवासी स्वभाव से सरल-हृदय, भोले और मधुर होते हैं। यहीकारण है कि वे प्रकृति की हर लय पर नाचते-गाते और गुनगुनाते हैं। होली, दीपावली, तीज आदि त्योहारों पर ग्रामवासियों की मस्ती देखने योग्य होती है। सावन की मस्ती में जब कन्याएँ झूला झूलती हुई नाच और गा पड़ती हैं तो स्वर्ग धरती पर उत्तर आता है।

भारत के कितने प्रतिशत जनता गाँवों में रहती है?

(1) 60 प्रतिशत
(2) 100 प्रतिशत
(3) 85 प्रतिशत ✔
(4) 40 प्रतिशत

Q.192

निम्नलिखित गद्यांश को ध्यानपूर्वक पढ़ें और उससे संबंधित प्रश्नों के उत्तर दें- भारत की 85% जनता गाँवों में रहती है। भारत की सच्ची तस्वीर गाँवों में ही देखी जा सकती है। हमारे कवियों ने गाँवों के अत्यंत लुभावने चित्र खींचे हैं। किसी ने उन्हें भारत की आत्मा कहा तो किसी ने देश का हृदय-स्पंदन। भारत के गाँव प्रकृति के झूले हैं। हरे- भरे खेत, झूमती सरसों, बरसता सावन, खुली हवा, सुगंधित हवा के झोंके, निर्दोष वातावरण, प्रदूषण से मुक्त रहन-सहन, शांत- मनोरम ऋतु चक्र, कूकती कोयल, नाचते मोर, धन्य-धान्य से भरे खेत-खलिहान यह है गाँव का मनोरम सत्य। इन बातों को देखकर प्रत्येक व्यक्ति का मन गाँवों में बसने की करता है। ऐसा प्रतीत होता है मानो चारों ओर शांति और खुशहाली का साम्राज्य हो। गाँवों का सामाजिक और सांस्कृतिक जीवन भी अत्यंत मनोहारी है। यहाँ के निवासी स्वभाव से सरल-हृदय, भोले और मधुर होते हैं। यहीकारण है कि वे प्रकृति की हर लय पर नाचते-गाते और गुनगुनाते हैं। होली, दीपावली, तीज आदि त्योहारों पर ग्रामवासियों की मस्ती देखने योग्य होती है। सावन की मस्ती में जब कन्याएँ झूला झूलती हुई नाच और गा पड़ती हैं तो स्वर्ग धरती पर उत्तर आता है।

कवियों ने भारत की आत्मा और देश का हृदय-स्पंदन किसे कहा है?

(1) शहर को
(2) उद्योग को
(3) गाँवों को ✔
(4) नारी को

Q.193

निम्नलिखित गद्यांश को ध्यानपूर्वक पढ़ें और उससे संबंधित प्रश्नों के उत्तर दें- भारत की 85% जनता गाँवों में रहती है। भारत की सच्ची तस्वीर गाँवों में ही देखी जा सकती है। हमारे कवियों ने गाँवों के अत्यंत लुभावने चित्र खींचे हैं। किसी ने उन्हें भारत की आत्मा कहा तो किसी ने देश का हृदय-स्पंदन। भारत के गाँव प्रकृति के झूले हैं। हरे- भरे खेत, झूमती सरसों, बरसता सावन, खुली हवा, सुगंधित हवा के झोंके, निर्दोष वातावरण, प्रदूषण से मुक्त रहन-सहन, शांत- मनोरम ऋतु चक्र, कूकती कोयल, नाचते मोर, धन्य-धान्य से भरे खेत-खलिहान यह है गाँव का मनोरम सत्य। इन बातों को देखकर प्रत्येक व्यक्ति का मन गाँवों में बसने की करता है। ऐसा प्रतीत होता है मानो चारों ओर शांति और खुशहाली का साम्राज्य हो। गाँवों का सामाजिक और सांस्कृतिक जीवन भी अत्यंत मनोहारी है। यहाँ के निवासी स्वभाव से सरल-हृदय, भोले और मधुर होते हैं। यहीकारण है कि वे प्रकृति की हर लय पर नाचते-गाते और गुनगुनाते हैं। होली, दीपावली, तीज आदि त्योहारों पर ग्रामवासियों की मस्ती देखने योग्य होती है। सावन की मस्ती में जब कन्याएँ झूला झूलती हुई नाच और गा पड़ती हैं तो स्वर्ग धरती पर उत्तर आता है।

गाँव के निवासी स्वभाव से कैसे होते हैं?

(1) दुःखी, दरिद्र और क्रोधी

(2) चतुर, चालाक और कपटी

(3) कठोर-हृदय, और ईर्ष्यालु

(4) सरल-हृदय, भोले और मधुर ✔

Q.194

निम्नलिखित गद्यांश को ध्यानपूर्वक पढ़ें और उससे संबंधित प्रश्नों के उत्तर दें- भारत की 85% जनता गाँवों में रहती है। भारत की सच्ची तस्वीर गाँवों में ही देखी जा सकती है। हमारे कवियों ने गाँवों के अत्यंत लुभावने चित्र खींचे हैं। किसी ने उन्हें भारत की आत्मा कहा तो किसी ने देश का हृदय-स्पंदन। भारत के गाँव प्रकृति के झूले हैं। हरे- भरे खेत, झूमती सरसों, बरसता सावन, खुली हवा, सुगंधित हवा के झोंके, निर्दोष वातावरण, प्रदूषण से मुक्त रहन-सहन, शांत- मनोरम ऋतु चक्र, कूकती कोयल, नाचते मोर, धन्य-धान्य से भरे खेत-खलिहान यह है गाँव का मनोरम सत्य। इन बातों को देखकर प्रत्येक व्यक्ति का मन गाँवों में बसने की करता है। ऐसा प्रतीत होता है मानो चारों ओर शांति और खुशहाली का साम्राज्य हो। गाँवों का सामाजिक और सांस्कृतिक जीवन भी अत्यंत मनोहारी है। यहाँ के निवासी स्वभाव से सरल-हृदय, भोले और मधुर होते हैं। यहीकारण है कि वे प्रकृति की हर लय पर नाचते-गाते और गुनगुनाते हैं। होली, दीपावली, तीज आदि त्योहारों पर ग्रामवासियों की मस्ती देखने योग्य होती है। सावन की मस्ती में जब कन्याएँ झूला झूलती हुई नाच और गा पड़ती हैं तो स्वर्ग धरती पर उत्तर आता है।

उपर्युक्त गद्यांश का उपयुक्त शीर्षक है-

(1) संचार-व्यवस्था

(2) नारी शिक्षा

(3) ग्रामीण जीवन ✔

(4) मँहगाई की समस्या

Q.195

निम्नलिखित गद्यांश को ध्यानपूर्वक पढ़ें और उससे संबंधित प्रश्नों के उत्तर दें- भारत की 85% जनता गाँवों में रहती है। भारत की सच्ची तस्वीर गाँवों में ही देखी जा सकती है। हमारे कवियों ने गाँवों के अत्यंत लुभावने चित्र खींचे हैं। किसी ने उन्हें भारत की आत्मा कहा तो किसी ने देश का हृदय-स्पंदन। भारत के गाँव प्रकृति के झूले हैं। हरे- भरे खेत, झूमती सरसों, बरसता सावन, खुली हवा, सुगंधित हवा के झोंके, निर्दोष वातावरण, प्रदूषण से मुक्त रहन-सहन, शांत- मनोरम ऋतु चक्र, कूकती कोयल, नाचते मोर, धन्य-धान्य से भरे खेत-खलिहान यह है गाँव का मनोरम सत्य। इन बातों को देखकर प्रत्येक व्यक्ति का मन गाँवों में बसने की करता है। ऐसा प्रतीत होता है मानो चारों ओर शांति और खुशहाली का साम्राज्य हो। गाँवों का सामाजिक और सांस्कृतिक जीवन भी अत्यंत मनोहारी है। यहाँ के निवासी स्वभाव से सरल-हृदय, भोले और मधुर होते हैं। यहीकारण है कि वे प्रकृति की हर लय पर नाचते-गाते और गुनगुनाते हैं। होली, दीपावली, तीज आदि त्योहारों पर ग्रामवासियों की मस्ती देखने योग्य होती है। सावन की मस्ती में जब कन्याएँ झूला झूलती हुई नाच और गा पड़ती हैं तो स्वर्ग धरती पर उत्तर आता है।

'निर्दोष' का पर्यायवाची शब्द है-

(1) विहंग

(2) स्वच्छ

(3) **बेक़सूर** ✔

(4) अपराध

Q.196

निम्नलिखित गद्यांश को ध्यानपूर्वक पढ़ें और उससे संबंधित प्रश्नों के उत्तर दें- यह अहिंसा वह स्थूल वस्तु नहीं है किसी को न मारना, इतना तो है ही। मिथ्या भाषण हिंसा है। द्वेष हिंसा है। किसी का बुरा चाहना हिंसा है। जगत के लिए जो आवश्यक वस्तु है, उस पर कब्जा रखना भी हिंसा है। इतना तो सबको समझ लेना चाहिए कि अहिंसा बिना सत्य की खोज असंभव है। अहिंसा और सत्य ऐसे ओतप्रोत हैं, जैसे सिक्के के दोनों रुख या चिकनी चकती के दो पहलू। उसमें किसे उलटा कहें, किसे सीधा? फिर भी अहिंसा को साधन और सत्य की साध्य मानना चाहिए। साधन अपने हाथ की बात है। इसमें अहिंसा परम धर्म मानी गई। सत्य परमेश्वर हुआ। साधन की चिंता करते रहने पर साध्य के दर्शन किसी दिन कर ही लेंगे। इतना निश्चय करना, जग जीत लेना है। हमारे मार्ग में चाहे जो संकट आए, बाह्य दृष्टि से देखने पर हमारी चाहे जितनी हार होती दिखाई दे, तो भी हमें विश्वास न छोड़कर एक ही मंत्र अपना जपना चाहिए- सत्य है, वही है, वही एक परमेश्वर है। उसके साक्षात्कार का एक ही मार्ग है, एक ही साधन अहिंसा है, उसे कभी न छोड़ेंगे। जिस सत्यरूप परमेश्वर के नाम पर यह प्रतिज्ञा की है, वह हमें इसके पालन का बल दे।

उपर्युक्त गद्यांश का उपयुक्त शीर्षक है-

(1) सत्यरूप परमेश्वर

(2) **सत्य और अहिंसा** ✔

(3) सच्चा आनंद

(4) दृढ़-संकल्प

Q.197

निम्नलिखित गद्यांश को ध्यानपूर्वक पढ़ें और उससे संबंधित प्रश्नों के उत्तर दें- यह अहिंसा वह स्थूल वस्तु नहीं है किसी को न मारना, इतना तो है ही। मिथ्या भाषण हिंसा है। द्वेष हिंसा है। किसी का बुरा चाहना हिंसा है। जगत के लिए जो आवश्यक वस्तु है, उस पर कब्जा रखना भी हिंसा है। इतना तो सबको समझ लेना चाहिए कि अहिंसा बिना सत्य की खोज असंभव है। अहिंसा और सत्य ऐसे ओतप्रोत हैं, जैसे सिक्के के दोनों रुख या चिकनी चकती के दो पहलू। उसमें किसे उलटा कहें, किसे सीधा? फिर भी अहिंसा को साधन और सत्य की साध्य मानना चाहिए। साधन अपने हाथ की बात है। इसमें अहिंसा परम धर्म मानी गई। सत्य परमेश्वर हुआ। साधन की चिंता करते रहने पर साध्य के दर्शन किसी दिन कर ही लेंगे। इतना निश्चय करना, जग जीत लेना है। हमारे मार्ग में चाहे जो संकट आए, बाह्य दृष्टि से देखने पर हमारी चाहे जितनी हार होती दिखाई दे, तो भी हमें विश्वास न छोड़कर एक ही मंत्र अपना जपना चाहिए- सत्य है, वही है, वही एक परमेश्वर है। उसके साक्षात्कार का एक ही मार्ग है, एक ही साधन अहिंसा है, उसे कभी न छोड़ेंगे। जिस सत्यरूप परमेश्वर के नाम पर यह प्रतिज्ञा की है, वह हमें इसके पालन का बल दे।

निम्नलिखित में कौन-सी बात में हिंसा नहीं है?

(1) सत्य की खोज ✔

(2) किसी का बुरा चाहना

(3) मिथ्या भाषण

(4) द्वेष

Q.198

निम्नलिखित गद्यांश को ध्यानपूर्वक पढ़ें और उससे संबंधित प्रश्नों के उत्तर दें- यह अहिंसा वह स्थूल वस्तु नहीं है किसी को न मारना, इतना तो है ही। मिथ्या भाषण हिंसा है। द्वेष हिंसा है। किसी का बुरा चाहना हिंसा है। जगत के लिए जो आवश्यक वस्तु है, उस पर कब्जा रखना भी हिंसा है। इतना तो सबको समझ लेना चाहिए कि अहिंसा बिना सत्य की खोज असंभव है। अहिंसा और सत्य ऐसे ओतप्रोत हैं, जैसे सिक्के के दोनों रुख या चिकनी चकती के दो पहलू। उसमें किसे उलटा कहें, किसे सीधा? फिर भी अहिंसा को साधन और सत्य की साध्य मानना चाहिए। साधन अपने हाथ की बात है। इसमें अहिंसा परम धर्म मानी गई। सत्य परमेश्वर हुआ। साधन की चिंता करते रहने पर साध्य के दर्शन किसी दिन कर ही लेंगे। इतना निश्चय करना, जग जीत लेना है। हमारे मार्ग में चाहे जो संकट आए, बाह्य दृष्टि से देखने पर हमारी चाहे जितनी हार होती दिखाई दे, तो भी हमें विश्वास न छोड़कर एक ही मंत्र अपना जपना चाहिए- सत्य है, वही है, वही एक परमेश्वर है। उसके साक्षात्कार का एक ही मार्ग है, एक ही साधन अहिंसा है, उसे कभी न छोड़ेंगे। जिस सत्यरूप परमेश्वर के नाम पर यह प्रतिज्ञा की है, वह हमें इसके पालन का बल दे।

सत्य की खोज असंभव है-

(1) अहिंसा के बिना ✔

(2) चरित्र के बिना

(3) विद्या के बिना

(4) प्रतिज्ञा के बिना

QuickSarkari.com | WhatsApp Channel | Telegram: t.me/quick_sarkari

Q.199

निम्नलिखित गद्यांश को ध्यानपूर्वक पढ़ें और उससे संबंधित प्रश्नों के उत्तर दें- यह अहिंसा वह स्थूल वस्तु नहीं है किसी को न मारना, इतना तो है ही। मिथ्या भाषण हिंसा है। द्वेष हिंसा है। किसी का बुरा चाहना हिंसा है। जगत के लिए जो आवश्यक वस्तु है, उस पर कब्जा रखना भी हिंसा है। इतना तो सबको समझ लेना चाहिए कि अहिंसा बिना सत्य की खोज असंभव है। अहिंसा और सत्य ऐसे ओतप्रोत हैं, जैसे सिक्के के दोनों रुख या चिकनी चकती के दो पहलू। उसमें किसे उलटा कहें, किसे सीधा? फिर भी अहिंसा को साधन और सत्य की साध्य मानना चाहिए। साधन अपने हाथ की बात है। इसमें अहिंसा परम धर्म मानी गई। सत्य परमेश्वर हुआ। साधन की चिंता करते रहने पर साध्य के दर्शन किसी दिन कर ही लेंगे। इतना निश्चय करना, जग जीत लेना है। हमारे मार्ग में चाहे जो संकट आए, बाह्य दृष्टि से देखने पर हमारी चाहे जितनी हार होती दिखाई दे, तो भी हमें विश्वास न छोड़कर एक ही मंत्र अपना जपना चाहिए- सत्य है, वही है, वही एक परमेश्वर है। उसके साक्षात्कार का एक ही मार्ग है, एक ही साधन अहिंसा है, उसे कभी न छोड़ेंगे। जिस सत्यरूप परमेश्वर के नाम पर यह प्रतिज्ञा की है, वह हमें इसके पालन का बल दे।

'परमेश्वर' का पर्यायवाची है-

(1) संसार
(2) **ईश्वर ✔**
(3) भूदेव
(4) ब्राह्मण

Q.200

निम्नलिखित गद्यांश को ध्यानपूर्वक पढ़ें और उससे संबंधित प्रश्नों के उत्तर दें- यह अहिंसा वह स्थूल वस्तु नहीं है किसी को न मारना, इतना तो है ही। मिथ्या भाषण हिंसा है। द्वेष हिंसा है। किसी का बुरा चाहना हिंसा है। जगत के लिए जो आवश्यक वस्तु है, उस पर कब्जा रखना भी हिंसा है। इतना तो सबको समझ लेना चाहिए कि अहिंसा बिना सत्य की खोज असंभव है। अहिंसा और सत्य ऐसे ओतप्रोत हैं, जैसे सिक्के के दोनों रुख या चिकनी चकती के दो पहलू। उसमें किसे उलटा कहें, किसे सीधा? फिर भी अहिंसा को साधन और सत्य की साध्य मानना चाहिए। साधन अपने हाथ की बात है। इसमें अहिंसा परम धर्म मानी गई। सत्य परमेश्वर हुआ। साधन की चिंता करते रहने पर साध्य के दर्शन किसी दिन कर ही लेंगे। इतना निश्चय करना, जग जीत लेना है। हमारे मार्ग में चाहे जो संकट आए, बाह्य दृष्टि से देखने पर हमारी चाहे जितनी हार होती दिखाई दे, तो भी हमें विश्वास न छोड़कर एक ही मंत्र अपना जपना चाहिए- सत्य है, वही है, वही एक परमेश्वर है। उसके साक्षात्कार का एक ही मार्ग है, एक ही साधन अहिंसा है, उसे कभी न छोड़ेंगे। जिस सत्यरूप परमेश्वर के नाम पर यह प्रतिज्ञा की है, वह हमें इसके पालन का बल दे।

'अहिंसा' का विलोम है-

(1) स्थूल
(2) स्तुति
(3) सुमति
(4) **हिंसा ✔**

Answer Key / उत्तर कुंजी

1 2	**2** 3	**3** 3	**4** 1	**5** 1	**6** 3	**7** 4	**8** 1	**9** 2	**10** 4	**11** 1	**12** 4	**13** 4	**14** 4	**15** 2
16 1	**17** 1	**18** 3	**19** 1	**20** 3	**21** 2	**22** 3	**23** 4	**24** 2	**25** 2	**26** 4	**27** 4	**28** 1	**29** 4	**30** 4
31 4	**32** 3	**33** 2	**34** 4	**35** 2	**36** 1	**37** 2	**38** 4	**39** 2	**40** 3	**41** 2	**42** 1	**43** 1	**44** 1	**45** 4
46 3	**47** 4	**48** 1	**49** 2	**50** 3	**51** 3	**52** 2	**53** 2	**54** 4	**55** 1	**56** 4	**57** 1	**58** 4	**59** 2	**60** 2
61 3	**62** 3	**63** 1	**64** 4	**65** 2	**66** 2	**67** 3	**68** 3	**69** 1	**70** 1	**71** 1	**72** 4	**73** 4	**74** 3	**75** 1
76 2	**77** 2	**78** 1	**79** 2	**80** 3	**81** 3	**82** 4	**83** 1	**84** 4	**85** 1	**86** 1	**87** 3	**88** 2	**89** 3	**90** 1

91 4	**92** 2	**93** 4	**94** 4	**95** 4	**96** 2	**97** 3	**98** 2	**99** 3	**100** 4	**101** 4	**102** 2	**103** 3	**104** 4	**105** 4
106 4	**107** 1	**108** 3	**109** 3	**110** 1	**111** 4	**112** 3	**113** 1	**114** 3	**115** 4	**116** 2	**117** 3	**118** 4	**119** 1	**120** 3
121 2	**122** 3	**123** 1	**124** 3	**125** 4	**126** 2	**127** 1	**128** 4	**129** 3	**130** 4	**131** 1	**132** 3	**133** 2	**134** 4	**135** 2
136 2	**137** 2	**138** 4	**139** 2	**140** 4	**141** 4	**142** 2	**143** 2	**144** 4	**145** 1	**146** 2	**147** 1	**148** 1	**149** 3	**150** 3
151 3	**152** 3	**153** 1	**154** 2	**155** 1	**156** 4	**157** 2	**158** 4	**159** 3	**160** 2	**161** 2	**162** 1	**163** 1	**164** 3	**165** 4
166 4	**167** 4	**168** 1	**169** 4	**170** 1	**171** 1	**172** 3	**173** 1	**174** 3	**175** 1	**176** 2	**177** 2	**178** 2	**179** 3	**180** 1
181 4	**182** 3	**183** 4	**184** 3	**185** 1	**186** 2	**187** 1	**188** 2	**189** 3	**190** 1	**191** 3	**192** 3	**193** 4	**194** 3	**195** 3
196 2	**197** 1	**198** 1	**199** 2	**200** 4										

Quick Sarkari

GOVT. OF NCT OF DELHI
Delhi Subordinate Services Selection Board
FC-18, Institutional Area, Karkardooma, Delhi – 110092.
www.dsssb.delhigovt.nic.in

Participant ID	[redacted]
Participant Name	
Test Center Name	Aadarsh Pariksha Kendra CENTER C - Gate No 2 - Noida Sector 64
Test Date	24/02/2026
Test Time	9:00 AM - 11:00 AM
Subject	Caretaker

Section : General intelligence and Reasoning Ability

Q.1 A, D, F, G, H और S एक ही इमारत के छह अलग-अलग तलों पर रहते हैं। इमारत के सबसे निचले तल का क्रमांक 1 है, उसके ऊपर वाले तल का क्रमांक 2 है, और इसी तरह सबसे ऊपरी तल का क्रमांक 6 है।
H, सम क्रमांक वाले किसी एक तल पर रहता है लेकिन 6 पर नहीं रहता है। G और H जिन तलों पर रहते हैं, उन तलों के क्रमांकों का योग 7 है। A, S के ठीक ऊपर रहता है। H और D जिन तलों पर रहते हैं, उन तलों के क्रमांकों का योग 3 है। H और A के बीच कितने व्यक्ति रहते हैं?

Ans
✗ 1. 4
✓ 2. 1
✗ 3. 2
✗ 4. 3

Question ID : **4410091462408**
Option 1 ID : **4410095777745**
Option 2 ID : **4410095777742**
Option 3 ID : **4410095777743**
Option 4 ID : **4410095777744**

QuickSarkari.com | WhatsApp Channel | Telegram: t.me/quick_sarkari

Q.2 सात बॉक्स B, F, G, H, R, T और Y एक के ऊपर एक रखे गए हैं, लेकिन जरूरी नहीं कि इसी क्रम में रखे गए हों। T के नीचे केवल दो बॉक्स रखे गए हैं। H के ऊपर केवल एक बॉक्स रखा गया है। H और G के बीच में केवल एक बॉक्स रखा गया है। R को Y के ठीक ऊपर रखा गया है। F को B के नीचे किसी एक स्थान पर रखा गया है। R के नीचे कितने बॉक्स रखे गए हैं?

Ans
✗ 1. 2
✗ 2. 4
✓ 3. 1
✗ 4. 3

Question ID : **4410091462349**
Option 1 ID : **4410095777507**
Option 2 ID : **4410095777509**
Option 3 ID : **4410095777506**
Option 4 ID : **4410095777508**

Q.3 सात व्यक्ति F, G, H, Q, R, S और T उत्तर की ओर अभिमुख होकर एक सीधी पंक्ति में बैठे हैं। Q के दाईं ओर कोई नहीं बैठा है। R के बाईं ओर केवल दो व्यक्ति बैठे हैं। R और T के बीच में केवल दो व्यक्ति बैठे हैं। H, F के बाईं ओर तीसरे स्थान पर बैठा है। S, F के ठीक दाईं ओर पड़ोस में बैठा है। G और T के बीच में कितने व्यक्ति बैठे हैं?

Ans
✗ 1. एक
✗ 2. दो
✓ 3. तीन
✗ 4. चार

Question ID : **441009788332**
Option 1 ID : **4410093107330**
Option 2 ID : **4410093107329**
Option 3 ID : **4410093107328**
Option 4 ID : **4410093107327**

Q.4 निम्नलिखित अक्षर शृंखला का संदर्भ लीजिए और नीचे दिए गए प्रश्न का उत्तर दीजिए। (गणना केवल बाएं से दाएं की जानी है।)

(बाएं) I L O O R B R U X H X A W S I T E F V I L P (दाएं)

ऐसे कितने व्यंजन हैं, जिनमें से प्रत्येक के ठीक पहले एक व्यंजन है और ठीक बाद एक स्वर भी है?

Ans
✓ 1. 4
✗ 2. 5
✗ 3. 6
✗ 4. 3

Question ID : **441009769326**
Option 1 ID : **4410093031297**
Option 2 ID : **4410093031298**
Option 3 ID : **4410093031300**
Option 4 ID : **4410093031299**

QuickSarkari.com | WhatsApp Channel | Telegram: t.me/quick_sarkari

Q.5 Refer to the following letter, symbol series and answer the question. Counting to be done from left to right only.

(Left) $ N % M U @ © % V A * & X U $ £ $ V Q % Z P (Right)

How many such letters are there, each of which is immediately preceded by a symbol and also immediately followed by a symbol?4412

Ans
✔ 1. 1
✘ 2. 3
✘ 3. 0
✘ 4. 2

Question ID : **4410097905l6**
Option 1 ID : **4410093116063**
Option 2 ID : **4410093116066**
Option 3 ID : **4410093116065**
Option 4 ID : **4410093116064**

Q.6 In a certain code language, 'SITE' is coded as '8312' and 'MIST' is coded as '4381'. What is the code for 'M' in the given code language?

Ans
✘ 1. 1
✘ 2. 2
✔ 3. 4
✘ 4. 3

Question ID : **4410091498587**
Option 1 ID : **4410095920024**
Option 2 ID : **4410095920025**
Option 3 ID : **4410095920027**
Option 4 ID : **4410095920026**

Q.7 D, F, G, H, J, K, and L are sitting around a circular table facing the center. G sits immediately to the right of D. Only three people sit between G and L when counted from the left of G. Only three people sit between D and H when counted from the left of D. F sits immediately to the right of J.
How many people sit between G and J when counted from the left of J?

Ans
✘ 1. 4
✘ 2. 2
✘ 3. 1
✔ 4. 3

Question ID : **4410091462272**
Option 1 ID : **4410095777189**
Option 2 ID : **4410095777187**
Option 3 ID : **4410095777186**
Option 4 ID : **4410095777188**

Q.8 निम्नलिखित अक्षर शृंखला का संदर्भ लीजिए और नीचे दिए गए प्रश्न का उत्तर दीजिए

(बाएं) W K R H N J V B F M A D Z X S T W F O Y G (दाएं)

उपरोक्त शृंखला के दाएं छोर से सातवें अक्षर और बाएं छोर से पांचवें अक्षर के बीच अंग्रेजी वर्णमाला शृंखला में कितने अक्षर होते हैं?

Ans
✔ 1. चार
✘ 2. दो
✘ 3. एक भी नहीं
✘ 4. तीन

Question ID : **441009780471**
Option 1 ID : **4410093075887**
Option 2 ID : **4410093075890**
Option 3 ID : **4410093075889**
Option 4 ID : **4410093075888**

Q.9 निम्नलिखित संख्या, प्रतीक शृंखला का संदर्भ लीजिए और दिए गए प्रश्न का उत्तर दीजिए। (सभी संख्याएँ केवल एक अंक वाली संख्याएँ हैं)

(बाएँ) 8 @ 4 # 4 % 7 * 9 + 7 ? @ 1 $ # 5 ^ 2 & 4 $ 1 @ (दाएँ)

यदि श्रृंखला से सभी प्रतीकों को हटा दिया जाए, तो निम्नलिखित में से कौन-सा दाईं ओर से सातवां होगा?

Ans
✘ 1. 5
✔ 2. 9
✘ 3. 1
✘ 4. 4

Question ID : **441009795720**
Option 1 ID : **4410093136879**
Option 2 ID : **4410093136881**
Option 3 ID : **4410093136880**
Option 4 ID : **4410093136882**

QuickSarkari

Q.10 D, F, G, H, J, K और L एक गोल मेज के परित: केंद्र की ओर अभिमुख होकर बैठे हैं।
H के बाईं ओर से गिनने पर, H और K के बीच केवल दो व्यक्ति बैठे हैं। J, K का निकटतम पड़ोसी है। J के बाईं ओर से गिनने पर, J और L के बीच केवल एक व्यक्ति बैठा है। L, K का निकटतम पड़ोसी नहीं है।
D, F के ठीक बाईं ओर पड़ोस में बैठा है।
L के बाईं ओर से गिनने पर, G और L के बीच कितने व्यक्ति बैठे हैं?

Ans
✗ 1. 0
✗ 2. 3
✗ 3. 2
✓ 4. 5

Question ID : **4410091462299**
Option 1 ID : **4410095777302**
Option 2 ID : **4410095777304**
Option 3 ID : **4410095777303**
Option 4 ID : **4410095777305**

Q.11 Refer to the following series and answer the question. (All numbers are single-digit numbers only) (Counting to be done from left to right only)
(Left) 1 3 2 9 7 3 7 8 9 6 4 9 7 9 8 3 4 4 7 2 1 1 2 (Right)
How many such odd digits are there, each of which is immediately preceded by an odd digit and also immediately followed by an odd digit?

Ans
✓ 1. Three
✗ 2. One
✗ 3. Two
✗ 4. Zero

Question ID : **441009794945**
Option 1 ID : **4410093133782**
Option 2 ID : **4410093133780**
Option 3 ID : **4410093133781**
Option 4 ID : **4410093133779**

Q.12 D, F, G, H, J, K और L एक गोल मेज के परित: केंद्र की ओर अभिमुख होकर बैठे हैं।
L के दाईं ओर से गिनने पर, L और G के बीच केवल दो व्यक्ति बैठे हैं। J के दाईं ओर से गिनने पर, K और J के बीच केवल तीन व्यक्ति बैठे हैं। G, J के ठीक दाईं ओर पड़ोस में बैठा है। D, H के ठीक दाईं ओर पड़ोस में बैठा है।
D के दाईं ओर से गिनने पर, D और F के बीच कितने व्यक्ति बैठे हैं?

Ans
✗ 1. 4
✗ 2. 1
✗ 3. 3
✓ 4. 2

Question ID : **4410091462280**
Option 1 ID : **4410095777221**
Option 2 ID : **4410095777218**
Option 3 ID : **4410095777220**
Option 4 ID : **4410095777219**

QuickSarkari.com | WhatsApp Channel | Telegram: t.me/quick_sarkari

Q.13 निम्नलिखित अक्षर शृंखला का संदर्भ लीजिए और नीचे दिए गए प्रश्न का उत्तर दीजिए। (गणना केवल बाएं से दाएं की जानी है।)

(बाएं) G J O X X W J O D Y V E N S T P E X Y A Y C (दाएं)

ऐसे कितने व्यंजन हैं, जिनमें से प्रत्येक के ठीक पहले एक व्यंजन है और ठीक बाद भी एक व्यंजन है?

Ans
✗ 1. 6
✗ 2. 7
✗ 3. 4
✓ 4. 5

Question ID : **441009769324**
Option 1 ID : **4410093031290**
Option 2 ID : **4410093031292**
Option 3 ID : **4410093031291**
Option 4 ID : **4410093031289**

Q.14 निम्नलिखित अक्षर शृंखला का संदर्भ लीजिए और नीचे दिए गए प्रश्न का उत्तर दीजिए। (गणना केवल बाएं से दाएं की जानी है।)

(बाएं) K Q I G I P M O P P V A V X S M I J M U S D (दाएं)

ऐसे कितने व्यंजन हैं, जिनमें से प्रत्येक के ठीक पहले एक व्यंजन है और ठीक बाद एक स्वर भी है?

Ans
✗ 1. 7
✗ 2. 4
✗ 3. 6
✓ 4. 5

Question ID : **441009769311**
Option 1 ID : **4410093031240**
Option 2 ID : **4410093031239**
Option 3 ID : **4410093031238**
Option 4 ID : **4410093031237**

QuickSarkari.com | WhatsApp Channel | Telegram: t.me/quick_sarkari

Q.15 Refer to the following letter series and answer the question. (Counting to be done from left to right only)

(Left) M N A I L N B I V D W A C K Z E E M A U D N (Right)

How many such consonants are there, each of which is immediately preceded by a consonant and also immediately followed by a vowel?

Ans
✗ 1. 3
✓ 2. 4
✗ 3. 5
✗ 4. 6

Question ID : **4410097694 70**
Option 1 ID : **4410093031875**
Option 2 ID : **4410093031873**
Option 3 ID : **4410093031874**
Option 4 ID : **4410093031876**

Q.16 एक निश्चित कूट भाषा में,
A % B का अर्थ है कि 'A, B का पिता है',
A ≥ B का अर्थ है कि 'A, B की बहन है',
A @ B का अर्थ है कि 'A, B की पत्नी है',
A ¥ B का अर्थ है कि 'A, B का पुत्र है'।

निम्नलिखित में से किसका अर्थ है कि P, A की पत्नी का भाई है?

Ans
✓ 1. P ¥ O % N ≥ M @ A
✗ 2. P % O ≥ N @ M ¥ A
✗ 3. P @ O % N ≥ M ¥ A
✗ 4. P @ O ≥ N % M ¥ A

Question ID : **4410091723129**
Option 1 ID : **4410096795682**
Option 2 ID : **4410096795681**
Option 3 ID : **4410096795684**
Option 4 ID : **4410096795683**

Q.17 दिनेश अपनी कक्षा में शीर्ष से 97वें और नीचे से 18वें स्थान पर है। उसकी कक्षा में कुल कितने विद्यार्थी हैं?

Ans
✓ 1. 114
✗ 2. 112
✗ 3. 116
✗ 4. 110

Question ID : **4410091462450**
Option 1 ID : **4410095777910**
Option 2 ID : **4410095777911**
Option 3 ID : **4410095777913**
Option 4 ID : **4410095777912**

QuickSarkari.com | WhatsApp Channel | Telegram: t.me/quick_sarkari

Q.18 In a certain code language "WEOK" is coded as "68" and "DYPK " is coded as "66".
What is the code for "LAXG" in the given language?

Ans
✗ 1. 52
✗ 2. 70
✓ 3. 78
✗ 4. 58

Question ID : **4410097958 07**
Option 1 ID : **4410093137228**
Option 2 ID : **4410093137230**
Option 3 ID : **4410093137229**
Option 4 ID : **4410093137227**

Q.19 In a certain code language,
A % B means 'A is the father of B',
A ≥ B means 'A is the brother of B',
A @ B means 'A is the wife of B',
A ¥ B means 'A is the daughter of B'.

Which of the following means that Q is the wife's sister of V?

Ans
✓ 1. Q ¥ R % T ≥ U @ V
✗ 2. Q @ R ≥ T % U ¥ V
✗ 3. Q % R ≥ T @ U ¥ V
✗ 4. Q @ R % T ≥ U ¥ V

Question ID : **4410091723142**
Option 1 ID : **4410096795733**
Option 2 ID : **4410096795736**
Option 3 ID : **4410096795734**
Option 4 ID : **4410096795735**

Q.20 सात बॉक्स B, F, G, H, R, T और Y एक के ऊपर एक रखे गए हैं, लेकिन जरूरी नहीं कि इसी क्रम में रखे गए हों।
R को नीचे से दूसरे स्थान पर रखा गया है। R और G के बीच केवल तीन बॉक्स रखे गए हैं। Y को R के नीचे किसी एक स्थान पर रखा गया है। G और T के बीच केवल F को रखा गया है। B को G के ऊपर किसी एक स्थान पर रखा गया है। H के नीचे कितने बॉक्स रखे गए हैं?

Ans
✗ 1. 3
✗ 2. 1
✓ 3. 2
✗ 4. 4

Question ID : **4410091462336**
Option 1 ID : **4410095777448**
Option 2 ID : **4410095777446**
Option 3 ID : **4410095777447**
Option 4 ID : **4410095777449**

Section : **General intelligence and Reasoning Ability1**

QuickSarkari.com | WhatsApp Channel | Telegram: t.me/quick_sarkari

Q.1 संख्याओं के दो सेट नीचे दिए गए हैं। संख्याओं के प्रत्येक सेट में, पहली संख्या पर कुछ गणितीय संक्रियाएं करके दूसरी संख्या प्राप्त की जाती है। इसी प्रकार, दूसरी संख्या पर कुछ गणितीय संक्रियाएं करके तीसरी संख्या प्राप्त की जाती है, और इसी प्रकार आगे की संख्याएं प्राप्त की जाती हैं। दिए गए विकल्पों में से कौन-सा विकल्प प्रश्न में दिए गए सेटों के समान संक्रियाओं का अनुसरण करता है?
(नोट - दो/तीन अंकीय संख्याओं को गणितीय संक्रिया के लिए अलग-अलग अंकों में तोड़ने की अनुमति नहीं है, जैसे कि, यदि 37 के बाद 10 है, तो संक्रिया 3+7 नहीं हो सकती है क्योंकि दो अंकीय संख्या को अलग-अलग अंकों में नहीं तोड़ा जा सकता है)

55 – 11 – 10 – 20 ; 30 – 6 – 5 – 10

Ans
✗ 1. 40 – 8 – 16 – 20
✓ 2. 80 – 16 – 15 – 30
✗ 3. 25 – 5 – 10 – 40
✗ 4. 65 – 13 – 26 – 16

Question ID : **4410095880 13**
Option 1 ID : **4410092307180**
Option 2 ID : **4410092307179**
Option 3 ID : **4410092307178**
Option 4 ID : **4410092307181**

Q.2 What will come in the place of '?' in the following equation, if '+' and '-' are interchanged and 'x' and '÷' are interchanged?
36 ÷ 7 + 289 x 17 - 16 = ?

Ans
✗ 1. 269
✗ 2. 216
✓ 3. 251
✗ 4. 235

Question ID : **4410091498473**
Option 1 ID : **4410095940906**
Option 2 ID : **4410095940903**
Option 3 ID : **4410095940905**
Option 4 ID : **4410095940904**

Q.3 Based on the alphabetical order, three of the following four are alike in a certain way and thus form a group. Which is the one that does not belong to that group?
(Note: The odd man out is not based on the number of consonants/vowels or their position in the letter cluster)6161

Ans
✗ 1. GIK
✗ 2. JLN
✗ 3. MOQ
✓ 4. PRU

Question ID : **4410097922 21**
Option 1 ID : **4410093122884**
Option 2 ID : **4410093122885**
Option 3 ID : **4410093122886**
Option 4 ID : **4410093122883**

QuickSarkari.com | WhatsApp Channel | Telegram: t.me/quick_sarkari

Q.4 OWHA is related to LUEY in a certain way based on the English alphabetical order. In the same way, ZPIV is related to WNFT. To which of the following is KSAX related to, following the same logic?

Ans
1. GPWX
2. HQXV
3. HPZU
4. GQYW

Question ID : **441009795773**
Option 1 ID : **4410093137092**
Option 2 ID : **4410093137093**
Option 3 ID : **4410093137091**
Option 4 ID : **4410093137094**

Q.5 Below are given two sets of numbers. In each set of numbers, certain mathematical operation(s) on first number results in the second number. Similarly, certain mathematical operation(s) on second number results in the third number and so on. Which of the given options follows the same set of operations as in the question? (NOTE – A two/three-digit number cannot be broken into individual digits for operations, e.g. if 37 is followed by 10, the operation cannot be 3 + 7 as a two-digit number cannot be broken into individual digits)

5 – 13 – 39 – 18
6 – 14 – 42 – 21

Ans
1. 15 – 23 – 69 – 90
2. 9 – 17 – 51 – 30
3. 13 – 21 – 62 – 41
4. 11 – 19 – 57 – 26

Question ID : **441009587869**
Option 1 ID : **4410092306605**
Option 2 ID : **4410092306603**
Option 3 ID : **4410092306604**
Option 4 ID : **4410092306602**

QuickSarkari.com | WhatsApp Channel | Telegram: t.me/quick_sarkari

Q.6 एक निश्चित तर्क के अनुसार 192 का संबंध 14 से है। उसी तर्क के अनुसार, 285 का संबंध 17 से है। समान तर्क का अनुसरण करते हुए 320 का संबंध दिए गए विकल्पों में किससे है?
(नोट: संख्याओं को उनके घटक अंकों में तोड़े बिना, पूर्ण संख्याओं पर संक्रियाएं की जानी चाहिए। उदाहरण के लिए 13 लीजिए, 13 पर संक्रियाएं जैसे कि 13 में जोड़ना/घटाना/गुणा करना आदि, की जा सकती हैं। 13 को 1 और 3 में तोड़ना तथा फिर 1 और 3 पर गणितीय संक्रियाएं करने की अनुमति नहीं है।)

Ans
✗ 1. 20
✗ 2. 16
✗ 3. 15
✓ 4. 18

Question ID : **441009588869**
Option 1 ID : **4410092310604**
Option 2 ID : **4410092310602**
Option 3 ID : **4410092310603**
Option 4 ID : **4410092310605**

QuickSarkari.com | WhatsApp Channel | Telegram: t.me/quick_sarkari

Q.7 Identify the figure given in the options which when put in place of ? will logically complete the series.

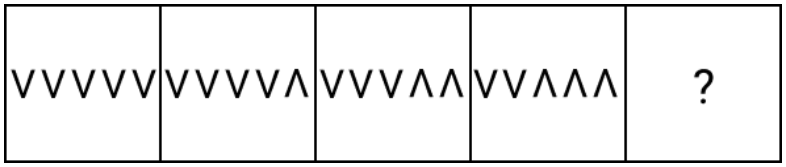

Ans

✗ 1. 

✗ 2. 

✗ 3. 

✓ 4. 

Question ID : **4410091471767**
Option 1 ID : **4410095814948**
Option 2 ID : **4410095814950**
Option 3 ID : **4410095814949**
Option 4 ID : **4410095814947**

Quick Sarkari

Q.8 What should come in place of ? in the given series based on the English alphabetical order?
XVC TQG PLK LGO ?

Ans
✔ 1. HBS
✘ 2. IBT
✘ 3. GHT
✘ 4. GBT

Question ID : **4410091501157**
Option 1 ID : **4410095942162**
Option 2 ID : **4410095942164**
Option 3 ID : **4410095942163**
Option 4 ID : **4410095942165**

Q.9 Based on the English alphabetical order, three of the following four letter cluster pairs are alike in a certain way and thus form a group. Which is the one that does not belong to that group?
(Note: The odd man out is not based on the number of consonants/vowels or their position in the letter cluster)

Ans
✘ 1. JG–HE
✘ 2. XU–VS
✘ 3. KH–IF
✔ 4. UR–RR

Question ID : **441009790732**
Option 1 ID : **4410093116929**
Option 2 ID : **4410093116928**
Option 3 ID : **4410093116930**
Option 4 ID : **4410093116927**

Q.10 Based on the alphabetical order, three of the following four are alike in a certain way and thus form a group. Which is the one that does not belong to that group?
(Note: The odd man out is not based on the number of consonants/vowels or their position in the letter cluster)2361

Ans
✘ 1. OLM
✘ 2. PMN
✘ 3. NKL
✔ 4. HJO

Question ID : **441009788485**
Option 1 ID : **4410093107942**
Option 2 ID : **4410093107941**
Option 3 ID : **4410093107939**
Option 4 ID : **4410093107940**

QuickSarkari.com | WhatsApp Channel | Telegram: t.me/quick_sarkari

Q.11 318 is related to 142 following a certain logic. Following the same logic, 292 is related to 116. To which of the following is 275 related, following the same logic? (NOTE: Operations should be performed on the whole numbers, without breaking down the numbers into their constituent digits. E.g. 13 – Operations on 13 such as adding/subtracting/multiplying etc. to 13, can be performed. Breaking down 13 into 1 and 3 and then performing mathematical operations on 1 and 3 is not allowed.)

Ans
✗ 1. 87
✗ 2. 115
✗ 3. 106
✓ 4. 99

Question ID : **441009590367**
Option 1 ID : **4410092316581**
Option 2 ID : **4410092316584**
Option 3 ID : **4410092316583**
Option 4 ID : **4410092316582**

Q.12 What will come in the place of '?' in the following equation, if '+' and '–' are interchanged and '×' and '÷' are interchanged?

47 + 16 × 30 ÷ 15 – 15 = ?

Ans
✗ 1. 56
✗ 2. 55
✓ 3. 54
✗ 4. 52

Question ID : **441009553792**
Option 1 ID : **4410092170483**
Option 2 ID : **4410092170485**
Option 3 ID : **4410092170482**
Option 4 ID : **4410092170484**

Q.13 BV 38 is related to IR 301 in a certain way. In the same way, LN 46 is related to SJ 365. To which of the following is PK 54 related, following the same logic?

Ans
✗ 1. XI 427
✓ 2. WG 429
✗ 3. VJ 419
✗ 4. VH 433

Question ID : **4410091498864**
Option 1 ID : **4410095940549**
Option 2 ID : **4410095940546**
Option 3 ID : **4410095940548**
Option 4 ID : **4410095940547**

QuickSarkari.com | WhatsApp Channel | Telegram: t.me/quick_sarkari

Q.14 यदि संख्या 3178564 के प्रत्येक विषम अंक में 1 जोड़ दिया जाता है और प्रत्येक सम अंक से 2 घटा दिया जाता है, तो इस प्रकार बनी नई संख्या में बाईं ओर से दूसरे अंक और दाईं ओर से दूसरे अंक का योग ज्ञात कीजिए।

Ans
✗ 1. 8
✗ 2. 14
✗ 3. 12
✓ 4. 6

Question ID : **4410091498500**
Option 1 ID : **4410095927737**
Option 2 ID : **4410095927736**
Option 3 ID : **4410095927735**
Option 4 ID : **4410095927734**

Q.15 Select the triad which follows the same pattern as that followed by the two triads given below. Both triads follow the same pattern.

JD – NH – RL
GB – KF –OJ535

Ans
✗ 1. HI – MP – SU
✓ 2. FL –JP – NT
✗ 3. NE – QK – XQ
✗ 4. EB – IG – NL

Question ID : **441009786670**
Option 1 ID : **4410093100680**
Option 2 ID : **4410093100679**
Option 3 ID : **4410093100681**
Option 4 ID : **4410093100682**

Q.16 What should come in place of ? in the given series based on the English alphabetical order?
UQO RNL OKI LHF ?

Ans
✓ 1. IEC
✗ 2. KLN
✗ 3. MVC
✗ 4. JCD

Question ID : **4410091501128**
Option 1 ID : **4410095939795**
Option 2 ID : **4410095939793**
Option 3 ID : **4410095939794**
Option 4 ID : **4410095939792**

QuickSarkari.com | WhatsApp Channel | Telegram: t.me/quick_sarkari

Q.17 In the following triad, each group of letters is related to the subsequent one following a certain logic. Select from the given options, the one which follows the same logic.

PAIN - NIPA - PIAN
RAGE - EGRA - RGAE1507

Ans
✗ 1. DOLE - DLOE - ELOD
✓ 2. MOWL - LWMO - MWOL
✗ 3. LURN - URLN - URNL
✗ 4. MEAT - TAME - EAMT

Question ID : **441009755847**
Option 1 ID : **4410092977382**
Option 2 ID : **4410092977381**
Option 3 ID : **4410092977384**
Option 4 ID : **4410092977383**

Q.18 Select the correct mirror image of the given combination when the mirror is placed at 'PQ' as shown below.



Ans
✗ 1. 
✗ 2. 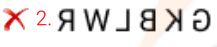
✗ 3. 
✓ 4. 

Question ID : **4410091471776**
Option 1 ID : **4410095814984**
Option 2 ID : **4410095814985**
Option 3 ID : **4410095814986**
Option 4 ID : **4410095814983**

QuickSarkari.com | WhatsApp Channel | Telegram: t.me/quick_sarkari

Q.19 What will come in the place of '?' in the following equation, if '+' and '-' are interchanged and '×' and '÷' are interchanged?
28 ÷ 5 + 147 × 7 - 23 = ?

Ans
✗ 1. 168
✓ 2. 142
✗ 3. 153
✗ 4. 114

Question ID : **4410091495049**
Option 1 ID : **4410095940885**
Option 2 ID : **4410095940883**
Option 3 ID : **4410095940884**
Option 4 ID : **4410095940886**

Q.20 5 is related to 25 following a certain logic. Following the same logic, 4 is related to 20. To which of the following is 15 related, following the same logic?

Ans
✗ 1. 80
✗ 2. 65
✓ 3. 75
✗ 4. 60

Question ID : **441009591368**
Option 1 ID : **4410092320588**
Option 2 ID : **4410092320586**
Option 3 ID : **4410092320587**
Option 4 ID : **4410092320585**

Section : General Awareness

Q.1 **निम्नलिखित में से कौन-सा समाजवादी अर्थव्यवस्था की एक परिभाषित विशेषता है?**

Ans
✗ 1. बाजारों में सरकारी हस्तक्षेप का पूर्ण अभाव होता है
✓ 2. उत्पादन के प्रमुख साधनों पर राज्य स्वामित्व और नियंत्रण होता है
✗ 3. निजी स्वामित्व केवल लाभ के उद्देश्य से संचालित होता है
✗ 4. आर्थिक निर्णय पूरी तरह से परंपरा और रीति-रिवाजों द्वारा निर्धारित किए जाते हैं

Question ID : **441009627397**
Option 1 ID : **4410092463741**
Option 2 ID : **4410092463740**
Option 3 ID : **4410092463742**
Option 4 ID : **4410092463743**

QuickSarkari.com | WhatsApp Channel | Telegram: t.me/quick_sarkari

Q.2 **भारत में न्यायिक समीक्षा के दायरे को समझने के लिए शंकरी प्रसाद केस (1951) क्यों महत्वपूर्ण है?**

Ans
✔ 1. इसने मौलिक अधिकारों में संशोधन करने की संसद की शक्ति को बनाए रखा।
✘ 2. इसने न्यायिक समीक्षा का राजनीतिक नीतिगत मामलों तक विस्तार किया।
✘ 3. इसने सामान्य कानूनों की तरह सभी संशोधनों की समीक्षा की अनुमति दी।
✘ 4. इसने बुनियादी ढांचे के माध्यम से संसद पर सीमाएं लगाईं।

Question ID : **4410091566361**
Option 1 ID : **4410096186848**
Option 2 ID : **4410096186850**
Option 3 ID : **4410096186851**
Option 4 ID : **4410096186849**

Q.3 **Under Article 74 of the Constitution of India, which provision governs the President's exercise of executive powers?**

Ans
✔ 1. The President acts upon the advice of the Council of Ministers
✘ 2. The Supreme Court directs executive actions of the President
✘ 3. The Council of Ministers exerts executive power without the President
✘ 4. The President may act independently in all executive matters

Question ID : **4410091566358**
Option 1 ID : **4410096186837**
Option 2 ID : **4410096186839**
Option 3 ID : **4410096186838**
Option 4 ID : **4410096186836**

Q.4 **1991 के बाद शुरू किए गए भारत के बाह्य क्षेत्र सुधारों के संदर्भ में, निम्नलिखित में से कौन-सा नीतिगत उपाय भारतीय अर्थव्यवस्था को वैश्विक अर्थव्यवस्था के साथ अधिक एकीकृत करने में सहायक रहा?**

Ans
✔ 1. विश्व व्यापार में अधिक भागीदारी को प्रोत्साहित करने के लिए आयात प्रशुल्क दरों को कम करना
✘ 2. विनिर्मित वस्तुओं के आयात पर मात्रात्मक प्रतिबंधों को सुदृढ़ करना
✘ 3. घरेलू उद्योगों में विदेशी प्रौद्योगिकी के उपयोग पर नियंत्रण को कड़ा करना
✘ 4. घरेलू उत्पाद बाजारों में विदेशी फर्मों के प्रवेश को प्रतिबंधित करना

Question ID : **4410091566830**
Option 1 ID : **4410096188652**
Option 2 ID : **4410096188653**
Option 3 ID : **4410096188651**
Option 4 ID : **4410096188654**

Q.5 On which date was the States Department, responsible for the integration of the Princely States into India, officially constituted?

Ans
✗ 1. 1952
✗ 2. 1946
✗ 3. 1950
✓ 4. 1947

Question ID : **4410091545906**
Option 1 ID : **4410096106462**
Option 2 ID : **4410096106460**
Option 3 ID : **4410096106461**
Option 4 ID : **4410096106459**

Q.6 Which Indian state receives nearly half of its annual rainfall during the retreating monsoon season (October–December), also known as the winter or northeast monsoon?

Ans
✗ 1. Assam
✗ 2. Gujarat
✓ 3. Tamil Nadu
✗ 4. Rajasthan

Question ID : **4410091551821**
Option 1 ID : **4410096129914**
Option 2 ID : **4410096129911**
Option 3 ID : **4410096129913**
Option 4 ID : **4410096129912**

Q.7 यदि किसी वस्तु की कीमत बढ़ जाती है जबकि उपभोक्ताओं की आय स्थिर रहती है, तो अन्य सभी कारक समान रहने पर, उपभोक्ताओं की क्रय शक्ति और उस वस्तु की मांग पर सबसे संभावित प्रभाव क्या होगा?

Ans
✗ 1. उपभोक्ताओं की क्रय शक्ति बढ़ती है और वस्तु की मांग घटती है
✗ 2. उपभोक्ताओं की क्रय शक्ति बढ़ती है और वस्तु की मांग बढ़ती है
✗ 3. उपभोक्ताओं की क्रय शक्ति घटती है और वस्तु की मांग बढ़ती है
✓ 4. उपभोक्ताओं की क्रय शक्ति घटती है और वस्तु की मांग घटती है

Question ID : **4410091567118**
Option 1 ID : **4410096189789**
Option 2 ID : **4410096189788**
Option 3 ID : **4410096189790**
Option 4 ID : **4410096189787**

QuickSarkari.com | WhatsApp Channel | Telegram: t.me/quick_sarkari

Q.8 यदि मांग वक्र और आपूर्ति वक्र दोनों एक ही समय में दाईं ओर विस्थापित होते हैं, तो बाजार में संतुलन मात्रा पर निश्चित प्रभाव क्या होगा?

Ans
✔ 1. संतुलन मात्रा बढ़ती है।
✘ 2. संतुलन मात्रा समान रहती है।
✘ 3. संतुलन मात्रा पर प्रभाव निर्धारित नहीं किया जा सकता है।
✘ 4. संतुलन मात्रा घटती है।

Question ID : **4410096266 48**
Option 1 ID : **4410092460744**
Option 2 ID : **4410092460746**
Option 3 ID : **4410092460747**
Option 4 ID : **4410092460745**

Q.9 Which of the following European colonial powers did the Dutch conquer Ceylon (Sri Lanka) from in 1658?

Ans
✘ 1. The British
✔ 2. The Portuguese
✘ 3. The French
✘ 4. The Irish Rulers

Question ID : **4410091539462**
Option 1 ID : **4410096081185**
Option 2 ID : **4410096081187**
Option 3 ID : **4410096081188**
Option 4 ID : **4410096081186**

Q.10 निम्नलिखित में से कौन-सा भारतीय राष्ट्रीय कांग्रेस नेता बहिष्कार और जन-आंदोलन की उग्र विचारधारा के बजाय संवैधानिक तरीकों और क्रमिक सुधारों से जुड़ा हुआ है?

Ans
✘ 1. लाला लाजपत राय
✘ 2. बाल गंगाधर तिलक
✔ 3. गोपाल कृष्ण गोखले
✘ 4. अरबिंदो घोष

Question ID : **4410091539472**
Option 1 ID : **4410096081225**
Option 2 ID : **4410096081226**
Option 3 ID : **4410096081228**
Option 4 ID : **4410096081227**

QuickSarkari.com | WhatsApp Channel | Telegram: t.me/quick_sarkari

Q.11 वर्ष 1955 में गठित भारत के प्रथम विधि आयोग के प्रथम अध्यक्ष के रूप में किसे नियुक्त किया गया था?

Ans
✗ 1. जे. बी. कृपलानी
✗ 2. जगजीवन राम
✓ 3. एम. सी. सीतलवाड़
✗ 4. वी. पी. मेनन

Question ID : **4410091547508**
Option 1 ID : **4410096112892**
Option 2 ID : **4410096112891**
Option 3 ID : **4410096112893**
Option 4 ID : **4410096112894**

Q.12 Who led the Tana Bhagat Movement, a tribal socio-religious uprising in the Chotanagpur region, during the early 20th century?

Ans
✗ 1. Bir Budhu Bhagat
✓ 2. Jatra Bhagat
✗ 3. Birsa Munda
✗ 4. Raja Jagganath

Question ID : **4410091539470**
Option 1 ID : **4410096081220**
Option 2 ID : **4410096081217**
Option 3 ID : **4410096081218**
Option 4 ID : **4410096081219**

Q.13 The mountain passes Nathu La and Jelep La are both located in which northeastern Indian state?

Ans
✗ 1. Arunachal Pradesh
✓ 2. Sikkim
✗ 3. Himachal Pradesh
✗ 4. Jammu and Kashmir

Question ID : **4410091551994**
Option 1 ID : **4410096130567**
Option 2 ID : **4410096130568**
Option 3 ID : **4410096130569**
Option 4 ID : **4410096130570**

QuickSarkari.com | WhatsApp Channel | Telegram: t.me/quick_sarkari

Q.14 **Which of the following best describes a mixed economy, as understood in basic economic theory?**

Ans
✗ 1. An economic system in which economic activities are confined mainly to agriculture with minimal industry

✗ 2. An economic system in which the government owns and controls the means of production and distribution

✗ 3. An economic system in which economic activities operate without private ownership and monetary exchange

✓ 4. An economic system in which government and private individuals jointly participate in ownership and production

Question ID : **4410091567147**
Option 1 ID : **4410096189902**
Option 2 ID : **4410096189899**
Option 3 ID : **4410096189901**
Option 4 ID : **4410096189900**

Q.15 **Which statement correctly distinguishes the Council of Ministers from the Union Cabinet under the Constitution of India?**

Ans
✓ 1. The Council of Ministers includes all ministers, and the Union Cabinet has senior ministers in major departments.

✗ 2. The Union Cabinet is a constitutional body, while the Council of Ministers is an extra-constitutional body.

✗ 3. The Council Ministers are appointed by Parliament, and the Union Cabinet is appointed by the President of India.

✗ 4. The Union Cabinet is liable to the Rajya Sabha, and the Council of Ministers is responsible to the Lok Sabha.

Question ID : **4410091566357**
Option 1 ID : **4410096186832**
Option 2 ID : **4410096186835**
Option 3 ID : **4410096186834**
Option 4 ID : **4410096186833**

Q.16 **Under Article 153 of the Indian Constitution, which of the following correctly reflects the constitutional provision regarding the office of the Governor?**

Ans
✗ 1. Every State must have a separate Governor who cannot serve in any other State simultaneously.

✗ 2. The Constitution mandates the formation of a collegium to appoint Governors for two or more States.

✗ 3. A Governor can be appointed only for one State at a time, except during emergencies.

✓ 4. The Constitution allows the same person to be appointed as Governor for two or more States.

Question ID : **4410091566356**
Option 1 ID : **4410096186828**
Option 2 ID : **4410096186831**
Option 3 ID : **4410096186829**
Option 4 ID : **4410096186830**

Q.17 Which issue stood at the core of the Kesavananda Bharati case decided by the Supreme Court of India?

Ans ✔ 1. Parliament's power to amend the Constitution and the existence of the Basic Structure doctrine

✘ 2. Whether the application of Article 356 is valid during a period of national emergency in India

✘ 3. Whether the approval of amendments by the President operated within constitutional boundaries

✘ 4. Whether the legality of preventive detention laws is addressed in Article 22 of the Indian Constitution

Question ID : **4410091566363**
Option 1 ID : **4410096186857**
Option 2 ID : **4410096186856**
Option 3 ID : **4410096186859**
Option 4 ID : **4410096186858**

Q.18 बंगाल की खाड़ी के किनारे स्थित तटीय निम्नभूमि, उत्कल मैदान, किस भारतीय राज्य के पूर्वी भाग में स्थित हैं?

Ans ✘ 1. तमिलनाडु

✘ 2. पश्चिम बंगाल

✘ 3. आंध्र प्रदेश

✔ 4. ओडिशा

Question ID : **4410091552041**
Option 1 ID : **4410096130757**
Option 2 ID : **4410096130758**
Option 3 ID : **4410096130755**
Option 4 ID : **4410096130756**

Q.19 भारत की जनगणना 2011 के अनुसार, किस राज्य में प्रति 1000 पुरुषों पर 1084 महिलाओं के साथ देश का सबसे उच्च लिंगानुपात दर्ज किया गया?

Ans ✘ 1. तमिलनाडु

✔ 2. केरल

✘ 3. पुडुचेरी

✘ 4. दमन और दीव

Question ID : **4410091552225**
Option 1 ID : **4410096131400**
Option 2 ID : **4410096131398**
Option 3 ID : **4410096131399**
Option 4 ID : **4410096131397**

QuickSarkari.com | WhatsApp Channel | Telegram: t.me/quick_sarkari

Q.20 भारत के विशाल उत्तरी मैदान कई उत्तरी और पूर्वी राज्यों में फैले हुए हैं। निम्नलिखित में से कौन सा राज्य विशाल उत्तरी मैदान क्षेत्र का हिस्सा नहीं है?

Ans
✗ 1. असम
✓ 2. गुजरात
✗ 3. पंजाब
✗ 4. उत्तर प्रदेश

Question ID : **4410091552204**
Option 1 ID : **4410096131336**
Option 2 ID : **4410096131339**
Option 3 ID : **4410096131337**
Option 4 ID : **4410096131338**

Section : General Awareness1

Q.1 On 31 August 2025, during the Shanghai Cooperation Organization (SCO) Summit in Tianjin, Prime Minister Shri Narendra Modi met Chinese President Xi Jinping. What did both leaders agree regarding the India–China border?

Ans
✗ 1. To withdraw all Indian troops from border areas
✗ 2. To completely resolve the Line of Actual Control (LAC) dispute
✓ 3. To maintain peace and tranquility along the border
✗ 4. To allow Chinese telecom firms to operate near the border areas

Question ID : **4410091559915**
Option 1 ID : **4410096161791**
Option 2 ID : **4410096161790**
Option 3 ID : **4410096161789**
Option 4 ID : **4410096161792**

Q.2 Sarwar Khan is a famous folk singer from _____.

Ans
✗ 1. Bihar
✗ 2. Haryana
✓ 3. Rajasthan
✗ 4. Uttarakhand

Question ID : **441009607846**
Option 1 ID : **4410092386502**
Option 2 ID : **4410092386501**
Option 3 ID : **4410092386503**
Option 4 ID : **4410092386504**

QuickSarkari.com | WhatsApp Channel | Telegram: t.me/quick_sarkari

Q.3 On 10 March 2024, India signed the Trade and Economic Partnership Agreement (TEPA) with the European Free Trade Association (EFTA), which came into effect on 1 October 2025. Which of the following countries are part of EFTA involved in this agreement?

Ans
- ✔ 1. Switzerland, Norway, Iceland, and Liechtenstein
- ✘ 2. Germany, France, and Italy
- ✘ 3. The UK, Ireland, and The Netherlands
- ✘ 4. Sweden, Denmark, Liechtenstein and Finland

Question ID : **4410091560560**
Option 1 ID : **4410096164407**
Option 2 ID : **4410096164406**
Option 3 ID : **4410096164408**
Option 4 ID : **4410096164409**

Q.4 According to a Press Information Bureau (PIB) release on 5 February 2026, the Government of India has undertaken various steps to promote Alternative Dispute Resolution, including institutional arbitration through which of the following initiatives?

Ans
- ✘ 1. Launch of Operation Mahadev
- ✘ 2. Signing of the India–EU Free Trade Agreement
- ✘ 3. Reforms in the National Legal Services Authority
- ✔ 4. Establishment of the India International Arbitration Centre

Question ID : **4410091559917**
Option 1 ID : **4410096161798**
Option 2 ID : **4410096161799**
Option 3 ID : **4410096161800**
Option 4 ID : **4410096161797**

Q.5 In the SI system of units, the prefix “kilo” in the term kilowatt represents which multiplicative factor?

Ans
- ✘ 1. 10^{-6}
- ✔ 2. 103
- ✘ 3. 106
- ✘ 4. 10^{-3}

Question ID : **441009624691**
Option 1 ID : **4410092452896**
Option 2 ID : **4410092452897**
Option 3 ID : **4410092452899**
Option 4 ID : **4410092452898**

QuickSarkari.com | WhatsApp Channel | Telegram: t.me/quick_sarkari

Q.6 Where did the India Internet Governance Forum (IIGF) 2025 take place?

Ans
✗ 1. Kolkata
✓ 2. New Delhi
✗ 3. Mumbai
✗ 4. Pune

Question ID : **4410091560568**
Option 1 ID : **4410096164444**
Option 2 ID : **4410096164443**
Option 3 ID : **4410096164442**
Option 4 ID : **4410096164445**

Q.7 Which of the following ministries will conduct the year-long National Migration Survey from July 2026 to June 2027, marking India's most comprehensive migration study in nearly two decades?

Ans
✗ 1. Ministry of Social Justice and Empowerment
✗ 2. Ministry of Home Affairs
✓ 3. Ministry of Statistics and Programme Implementation
✗ 4. Ministry of Labour and Employment

Question ID : **4410091559699**
Option 1 ID : **4410096161031**
Option 2 ID : **4410096161029**
Option 3 ID : **4410096161028**
Option 4 ID : **4410096161030**

Q.8 Which law of motion states that "For every action, there is an equal and opposite reaction"?

Ans
✗ 1. Newton's Second Law
✗ 2. Newton's Law of Universal Gravitation
✓ 3. Newton's Third Law
✗ 4. Newton's First Law

Question ID : **441009625294**
Option 1 ID : **4410092455310**
Option 2 ID : **4410092455311**
Option 3 ID : **4410092455309**
Option 4 ID : **4410092455308**

QuickSarkari.com | WhatsApp Channel | Telegram: t.me/quick_sarkari

Q.9 On 18 August 2025, India enacted a landmark legislation to reform sports governance, ensuring transparency, accountability, and athlete welfare. What is the name of this Act?

Ans
- ✔ 1. National Sports Governance Act, 2025
- ✘ 2. National Sports Development Act, 2025
- ✘ 3. Khelo Bharat Niti, 2025
- ✘ 4. Fit India Governance Act, 2025

Question ID : **4410091559815**
Option 1 ID : **4410096161497**
Option 2 ID : **4410096161496**
Option 3 ID : **4410096161498**
Option 4 ID : **4410096161499**

Q.10 Which of the following Indian athletes won gold in the men's javelin throw F64 event during World Para Athletics Championships (WPAC) 2025?

Ans
- ✔ 1. Sumit Antil
- ✘ 2. Dharambir
- ✘
- ✘ 4. Ekta Bhyan

Question ID : **4410091559817**
Option 1 ID : **4410096161505**
Option 2 ID : **4410096161507**
Option 3 ID : **4410096161504**
Option 4 ID : **4410096161506**

Q.11 According to a Press Information Bureau (PIB) release dated 12 January 2026, which approach was emphasised by the Union Minister for Environment, Forest and Climate Change as essential for tackling air pollution in the Delhi–NCR region?

Ans
- ✔ 1. Long-term and coordinated policy interventions
- ✘ 2. Immediate closure of all polluting activities
- ✘ 3. Emergency actions during winter months only
- ✘ 4. Dependence only on weather-related solutions

Question ID : **4410091559368**
Option 1 ID : **4410096159811**
Option 2 ID : **4410096159813**
Option 3 ID : **4410096159814**
Option 4 ID : **4410096159812**

QuickSarkari.com | WhatsApp Channel | Telegram: t.me/quick_sarkari

Q.12 भारत में बाल कल्याण की स्थिति के बारे में निम्नलिखित में से कौन-सा प्रकाशन, सांख्यिकी और कार्यक्रम कार्यान्वयन मंत्रालय (MoSPI) द्वारा सितंबर 2025 में जारी किया गया था?

Ans
✗ 1. नेशनल चाइल्ड सेफ्टी रिव्यू 2025 (National Child Safety Review 2025)
✗ 2. इंडिया चाइल्ड प्रोटेक्शन इंडेक्स 2025 (India Child Protection Index 2025)
✗ 3. चाइल्ड वेलफेयर रिपोर्ट 2025 (Child Welfare Report 2025)
✓ 4. चिल्ड्रन इन इंडिया 2025 (Children in India 2025)

Question ID : **4410091560534**
Option 1 ID : **4410096164305**
Option 2 ID : **4410096164304**
Option 3 ID : **4410096164302**
Option 4 ID : **4410096164303**

Q.13 अगस्त 2025 में, निम्नलिखित में से किस योजना के अंतर्गत दिल्ली सिख गुरुद्वारा प्रबंधन समिति (DSGMC) से जुड़े लगभग 100 प्रशिक्षुओं को स्वतंत्रता दिवस समारोह, 2025 में विशेष अतिथि के रूप में आमंत्रित किया गया था?

Ans
✗ 1. प्रधानमंत्री कौशल विकास योजना (PMKVY)
✗ 2. कौशल भारत कार्यक्रम
✗ 3. उद्यमिता योजना
✓ 4. प्रधानमंत्री विरासत का संवर्धन (PM VIKAS)

Question ID : **4410091560542**
Option 1 ID : **4410096164334**
Option 2 ID : **4410096164336**
Option 3 ID : **4410096164337**
Option 4 ID : **4410096164335**

Q.14 In January 2026, which of the following ministries issued the notification for the first phase of the Census of India 2027, covering house listing operations and provisions for self-enumeration?

Ans
✗ 1. Ministry of Housing and Urban Affairs
✗ 2. Ministry of Statistics and Programme Implementation
✓ 3. Ministry of Home Affairs
✗ 4. Ministry of Panchayati Raj

Question ID : **4410091559694**
Option 1 ID : **4410096161003**
Option 2 ID : **4410096161001**
Option 3 ID : **4410096161000**
Option 4 ID : **4410096161002**

QuickSarkari.com | WhatsApp Channel | Telegram: t.me/quick_sarkari

Q.15 27 अगस्त 2025 को केंद्रीय मंत्रिमंडल ने पीएम-स्वनिधि (PM SVANidhi) योजना के पुनर्गठन और विस्तार को मंजूरी दी। पुनर्गठित योजना की प्रमुख विशेषता निम्नलिखित में से कौन-सी है?

Ans
✔ 1. पीएम-स्वनिधि ऋण अवधि का 31 मार्च 2030 तक विस्तार
✘ 2. 1 जनवरी 2025 से पीएम-स्वनिधि ऋणों का सब्सिडी में परिवर्तन
✘ 3. 31 दिसंबर 2025 को पीएम-स्वनिधि योजना का समापन
✘ 4. 1 अप्रैल 2026 से विशेष रूप से ग्रामीण क्षेत्रों के लिए पीएम-स्वनिधि का शुभारंभ

Question ID : **4410091560459**
Option 1 ID : **4410096164002**
Option 2 ID : **4410096164005**
Option 3 ID : **4410096164003**
Option 4 ID : **4410096164004**

Q.16 As of 2025, which of the following languages was most recently added to the list of Indian Classical Languages?

Ans
✘ 1. Malayalam
✔ 2. Marathi
✘ 3. Odia
✘ 4. Telugu

Question ID : **4410091567307**
Option 1 ID : **4410096190522**
Option 2 ID : **4410096190523**
Option 3 ID : **4410096190521**
Option 4 ID : **4410096190524**

Q.17 According to Avogadro's law, equal volumes of all gases, measured at the same temperature and pressure, contain what?

Ans
✘ 1. Equal densities
✔ 2. An equal number of molecules
✘ 3. Equal masses
✘ 4. An equal number of electrons

Question ID : **4410091567519**
Option 1 ID : **4410096191390**
Option 2 ID : **4410096191389**
Option 3 ID : **4410096191388**
Option 4 ID : **4410096191391**

QuickSarkari.com | WhatsApp Channel | Telegram: t.me/quick_sarkari

Q.18 Who among the following Padma Shri winners (2023) is associated with Pandwani?

Ans
✔ 1. Usha Barle
✘ 2. Bombay Jayashri
✘ 3. Prahlad Tipanya
✘ 4. Rameshwar Pathak

Question ID : **441009608123**
Option 1 ID : **4410092387612**
Option 2 ID : **4410092387610**
Option 3 ID : **4410092387609**
Option 4 ID : **4410092387611**

Q.19 नीति (NITI) आयोग द्वारा 28 जनवरी 2026 को भारत के सर्वाधिक अल्पविकसित जिलों और ब्लॉकों में स्वास्थ्य, पोषण, स्वच्छता, शिक्षा और पशु टीकाकरण के परिणामों में सुधार लाने के लिए शुरू किया गया तीन महीने का राष्ट्रव्यापी अभियान निम्नलिखित में से क्या है?

Ans
✘ 1. पोषण अभियान (Poshan Abhiyaan)
✔ 2. संपूर्णता अभियान 2.0 (Sampoornata Abhiyan 2.0)
✘ 3. आकांक्षी जिला मिशन (Aspirational Districts Mission)
✘ 4. स्वच्छ भारत अभियान (Swachh Bharat Abhiyan)

Question ID : **4410091559919**
Option 1 ID : **4410096163968**
Option 2 ID : **4410096163966**
Option 3 ID : **4410096163967**
Option 4 ID : **4410096163969**

Q.20 Which national exercise, approved by the Union Cabinet in 2026 with an outlay of ₹11,718.24 crore, will be India's first census to be conducted entirely through digital means using Android and iOS mobile applications?

Ans
✘ 1. National Population Register (Digital Update) 2027
✘ 2. Civil Registration System Modernisation Programme
✔ 3. Census of India 2027
✘ 4. Digital Household Enumeration Pilot under MoSPI

Question ID : **4410091559696**
Option 1 ID : **4410096161009**
Option 2 ID : **4410096161010**
Option 3 ID : **4410096161008**
Option 4 ID : **4410096161011**

Section : **Arithmetical and Numerical Ability**

QuickSarkari.com | WhatsApp Channel | Telegram: t.me/quick_sarkari

Q.1 Rishi had ₹1,326 with him. He divided it between his two sons Shan and Piyush and asked them to invest it at 4% rate of interest compounded annually. It was seen that Shan and Piyush got same amount after 13 and 14 years, respectively. How much (in ₹) did Rishi give to Piyush?

Ans
✗ 1. 500
✗ 2. 676
✓ 3. 650
✗ 4. 776

Question ID : **441009573624**
Option 1 ID : **4410092249618**
Option 2 ID : **4410092249617**
Option 3 ID : **4410092249616**
Option 4 ID : **4410092249619**

Q.2 The average marks obtained by 9 students in an examination is 75. If the total marks of 8 students is 590, find the marks obtained by 9th student.

Ans
✗ 1. 88
✗ 2. 80
✗ 3. 79
✓ 4. 85

Question ID : **4410091516370**
Option 1 ID : **4410095988884**
Option 2 ID : **4410095988882**
Option 3 ID : **4410095988881**
Option 4 ID : **4410095988883**

Q.3 Find the simple interest (in ₹) on ₹3000 as a sum borrowed at 9% per year rate of interest for 3 years.1683

Ans
✓ 1. 810
✗ 2. 850
✗ 3. 770
✗ 4. 750

Question ID : **441009852965**
Option 1 ID : **4410093364832**
Option 2 ID : **4410093364833**
Option 3 ID : **4410093364835**
Option 4 ID : **4410093364834**

QuickSarkari.com | WhatsApp Channel | Telegram: t.me/quick_sarkari

Q.4 How many prime numbers are there between 1 and 44?

Ans
✗ 1. 14
✗ 2. 12
✗ 3. 11
✓ 4. 13

Question ID : **4410091490545**
Option 1 ID : **4410095888199**
Option 2 ID : **4410095888197**
Option 3 ID : **4410095888196**
Option 4 ID : **4410095888198**

Q.5 **Simplify:**

$$\frac{\sqrt[3]{3375}}{\sqrt[4]{10000}} \times \frac{5}{45} \times 42$$

Ans
✓ 1. 7
✗ 2. 16
✗ 3. -1
✗ 4. 4

Question ID : **441009575770**
Option 1 ID : **4410092258200**
Option 2 ID : **4410092258201**
Option 3 ID : **4410092258202**
Option 4 ID : **4410092258203**

Q.6 **The number 36876 is divisible by which of the following numbers?**

Ans
✓ 1. 6
✗ 2. 5
✗ 3. 9
✗ 4. 8

Question ID : **4410091490544**
Option 1 ID : **4410095888193**
Option 2 ID : **4410095888192**
Option 3 ID : **4410095888195**
Option 4 ID : **4410095888194**

QuickSarkari.com | WhatsApp Channel | Telegram: t.me/quick_sarkari

Q.7 In what ratio must a grocer mix two varieties of wheat worth ₹79 per kg and ₹143 per kg so that if he sells the mixture at ₹145 per kg, he may gain 45%?3295

Ans
1. 53:26
2. 47:27
3. 43:21
4. 45:22

Question ID : **4410095801 99**
Option 1 ID : **4410092275925**
Option 2 ID : **4410092275924**
Option 3 ID : **4410092275922**
Option 4 ID : **4410092275923**

Q.8 एक पात्र में दूध और पानी का अनुपात 5 : 3 है। उसमें 10 लीटर दूध और 7 लीटर पानी मिलाया जाता है, जिससे अब दूध और पानी का अनुपात 8 : 5 हो जाता है। मिश्रण में दूध की प्रारंभिक मात्रा (लीटर में) ज्ञात कीजिए।

Ans
1. 36
2. 30
3. 32
4. 34

Question ID : **4410091486583**
Option 1 ID : **4410095872754**
Option 2 ID : **4410095872751**
Option 3 ID : **4410095872752**
Option 4 ID : **4410095872753**

Q.9 A fraction is greater than its reciprocal by $\frac{11}{30}$. What is the fraction?

Ans
1. $\frac{3}{5}$
2. $\frac{5}{\frac{3}{6}}$
3. $\frac{6}{5}$
4. $\frac{5}{6}$

Question ID : **4410091519838**
Option 1 ID : **4410096002686**
Option 2 ID : **4410096002687**
Option 3 ID : **4410096002684**
Option 4 ID : **4410096002685**

QuickSarkari.com | WhatsApp Channel | Telegram: t.me/quick_sarkari

Q.10 The HCF and LCM of two 2-digit numbers are 12 and 360, respectively. The numbers are:

Ans
✔ 1. 60 and 72
✘ 2. 48 and 72
✘ 3. 30 and 36
✘ 4. 36 and 60

Question ID : **4410091519861**
Option 1 ID : **4410096002781**
Option 2 ID : **4410096002782**
Option 3 ID : **4410096002780**
Option 4 ID : **4410096002783**

Q.11 In what ratio must a grocer mix two varieties of wheat worth ₹63 per kg and ₹113 per kg so that if he sells the mixture at ₹137 per kg, he may gain 37%?3294

Ans
✘ 1. 23:42
✘ 2. 15:38
✘ 3. 14:39
✔ 4. 13:37

Question ID : **441009580198**
Option 1 ID : **4410092275921**
Option 2 ID : **4410092275919**
Option 3 ID : **4410092275920**
Option 4 ID : **4410092275918**

Q.12 **Simplify:** $25 - [6 - \{4 - (8 - 6 + 3)\}]$

Ans
✘ 1. 26
✔ 2. 18
✘ 3. 22
✘ 4. 24

Question ID : **4410091495866**
Option 1 ID : **4410095908764**
Option 2 ID : **4410095908761**
Option 3 ID : **4410095908762**
Option 4 ID : **4410095908763**

QuickSarkari.com | WhatsApp Channel | Telegram: t.me/quick_sarkari

Q.13 नीचे दिए गए दंड आलेख में एक निश्चित वर्ष में किसी माध्यमिक विद्यालय में हुई वार्षिक परीक्षा के परिणाम दर्शाए गए हैं। आलेख का अध्ययन करें और दिए गए प्रश्न का उत्तर दें।

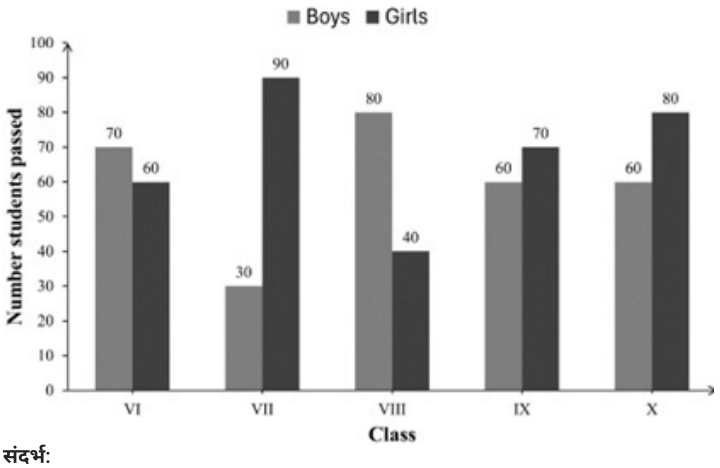

संदर्भ:
Number students passed = उत्तीर्ण होने वाले विद्यार्थियों की संख्या
Boys = लड़का
Girls = लड़की
Class = कक्षा

प्रति कक्षा उत्तीर्ण होने वाले लड़कों की औसत संख्या ज्ञात कीजिए।

Ans
✗ 1. 50
✗ 2. 55
✗ 3. 65
✓ 4. 60

Question ID : **4410091502937**
Option 1 ID : **4410095936008**
Option 2 ID : **4410095936009**
Option 3 ID : **4410095936011**
Option 4 ID : **4410095936010**

Q.14 Hardik deposited a sum of ₹64,200 at 20% rate of interest per annum, compounded annually. The total amount received by Hardik after 2 years is:

Ans
✗ 1. ₹92,301
✗ 2. ₹92,610
✗ 3. ₹92,591
✓ 4. ₹92,448

Question ID : **441009571890**
Option 1 ID : **4410092242682**
Option 2 ID : **4410092242683**
Option 3 ID : **4410092242681**
Option 4 ID : **4410092242680**

QuickSarkari.com | WhatsApp Channel | Telegram: t.me/quick_sarkari

Q.15 एक शहर में व्यक्तियों की वर्तमान जनसंख्या 9,000 है। पहले वर्ष में जनसंख्या में 6% की कमी आई। दूसरे वर्ष में, पहले वर्ष के अंत तक की जनसंख्या में 1269 व्यक्तियों की वृद्धि हुई। इन दो वर्षों में शहर की जनसंख्या में कुल प्रतिशत परिवर्तन ज्ञात कीजिए।

Ans
✗ 1. 2.1% की कमी
✗ 2. 1.1% की कमी
✗ 3. 6.1% की वृद्धि
✓ 4. 8.1% की वृद्धि

Question ID : **4410089897614**
Option 1 ID : **4410093544529**
Option 2 ID : **4410093544527**
Option 3 ID : **4410093544526**
Option 4 ID : **4410093544528**

Q.16 दिए गए पाई चार्ट का अध्ययन करें और निम्नलिखित प्रश्न का उत्तर दें। पाई चार्ट किसी कंपनी के चावल (rice), गेहूं (wheat), चीनी (sugar) और चाय (tea) के उत्पादन की तुलनात्मक जानकारी दर्शाता है।

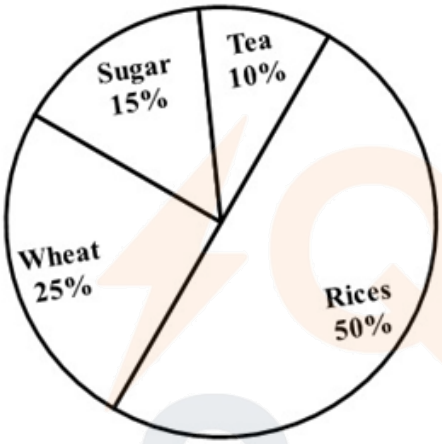

चावल और चाय के उत्पादन के योग तथा गेहूं और चीनी के उत्पादन के अंतर का अनुपात ज्ञात कीजिए।

Ans
✗ 1. 1 : 3
✓ 2. 6 : 1
✗ 3. 2 : 3
✗ 4. 5 : 1

Question ID : **4410091502534**
Option 1 ID : **4410095934467**
Option 2 ID : **4410095934469**
Option 3 ID : **4410095934466**
Option 4 ID : **4410095934468**

QuickSarkari.com | WhatsApp Channel | Telegram: t.me/quick_sarkari

Q.17 The sum and difference of two numbers is 64 and 32, respectively. Find their HCF.

Ans
✗ 1. 12
✗ 2. 18
✓ 3. 16
✗ 4. 14

Question ID : **4410091490560**
Option 1 ID : **4410095888256**
Option 2 ID : **4410095888259**
Option 3 ID : **4410095888258**
Option 4 ID : **4410095888257**

Q.18 The simplified value of $\frac{5}{19}$ of $(2\frac{4}{5}+2\frac{4}{15})+\frac{1}{2}\div 1\frac{1}{2}-\frac{2}{3}$ is:

Ans
✗ 1. $\frac{11}{5}$
✓ 2. 1
✗ 3. $\frac{11}{6}$
✗ 4. -1

Question ID : **4410091519928**
Option 1 ID : **4410096003074**
Option 2 ID : **4410096003073**
Option 3 ID : **4410096003072**
Option 4 ID : **4410096003075**

Q.19 Simplify: $\sqrt{\frac{24^2+7^2}{7^2-45}}$

Ans
✗ 1. 13.5
✗ 2. 11.5
✓ 3. 12.5
✗ 4. 14.5

Question ID : **4410091496018**
Option 1 ID : **4410095909367**
Option 2 ID : **4410095909365**
Option 3 ID : **4410095909366**
Option 4 ID : **4410095909368**

QuickSarkari.com | WhatsApp Channel | Telegram: t.me/quick_sarkari

Q.20 एक परीक्षा में, अधिकतम 80 अंकों में से B को 54 अंक प्राप्त हुए जबकि A को 80 अंक प्राप्त हुए। B का प्राप्तांक, A के प्राप्तांक का कितना प्रतिशत था?

Ans
✗ 1. 148.15%
✗ 2. 80.55%
✗ 3. 100%
✓ 4. 67.5%

Question ID : **4410098572 59**
Option 1 ID : **4410093382009**
Option 2 ID : **4410093382010**
Option 3 ID : **4410093382011**
Option 4 ID : **4410093382008**

Section : Arithmetical and Numerical Ability1

Q.1 A boy can do a work in 60 days and a girl in 30 days. If they work on it together for 4 days, then find the fraction of the work that is left.

Ans
✗ 1. $\frac{2}{5}$
✗ 2. $\frac{1}{5}$
✗ 3. $\frac{3}{5}$
✓ 4. $\frac{4}{5}$

Question ID : **4410091512474**
Option 1 ID : **4410095973963**
Option 2 ID : **4410095973962**
Option 3 ID : **4410095973964**
Option 4 ID : **4410095973965**

Q.2 The mean proportional between 63 and 112 is:

Ans
✗ 1. 56
✓ 2. 84
✗ 3. 49
✗ 4. 88

Question ID : **4410091515962**
Option 1 ID : **4410095987213**
Option 2 ID : **4410095987214**
Option 3 ID : **4410095987215**
Option 4 ID : **4410095987216**

QuickSarkari.com | WhatsApp Channel | Telegram: t.me/quick_sarkari

Q.3 A and B complete a work in 7 days. If A alone can do it in 28 days then, B alone can do it three-fourth of the same work in _____(days).4077

Ans
✗ 1. 28
✗ 2. 21
✓ 3. 7
✗ 4. 14

Question ID : **441009897390**
Option 1 ID : **4410093543633**
Option 2 ID : **4410093543632**
Option 3 ID : **4410093543630**
Option 4 ID : **4410093543631**

Q.4 The list price of a washing machine is ₹17500. It is sold to a retailer after two successive discounts of 50% and 4%. The retailer wants to earn a profit of 35% on his cost price after allowing a 40% discount (on its new list price) to the customer. At what price should he list the washing machine?

Ans
✗ 1. ₹19021
✗ 2. ₹18855
✗ 3. ₹18718
✓ 4. ₹18900

Question ID : **441009915749**
Option 1 ID : **4410093617250**
Option 2 ID : **4410093617248**
Option 3 ID : **4410093617249**
Option 4 ID : **4410093617247**

Q.5 A shopkeeper bought six identical mobile phones at the rate of ₹84,000, and sold them at the rate of ₹35,000 for every two phones. Find the gain percentage.

Ans
✗ 1. 22%
✗ 2. 26%
✗ 3. 27%
✓ 4. 25%

Question ID : **441009577770**
Option 1 ID : **4410092266209**
Option 2 ID : **4410092266207**
Option 3 ID : **4410092266208**
Option 4 ID : **4410092266206**

QuickSarkari.com | WhatsApp Channel | Telegram: t.me/quick_sarkari

Q.6 A train, 180 meters long, crosses another train of length 120 meters, running in the same direction, in 12 seconds. If the speed of the shorter train is 40 km/hour, find the speed of the longer train.

Ans
1. 48 km/hour
2. 115 km/hour
3. 50 km/hour
4. 130 km/hour

Question ID : **4410091523851**
Option 1 ID : **4410096018679**
Option 2 ID : **4410096018681**
Option 3 ID : **4410096018680**
Option 4 ID : **4410096018682**

Q.7 The material of a cone is converted into the shape of a cylinder of equal radius. If the height of the cylinder is 12 cm, the height of the cone is:

Ans
1. 36 cm
2. 12 cm
3. 24 cm
4. 48 cm

Question ID : **4410091505050**
Option 1 ID : **4410095944559**
Option 2 ID : **4410095944560**
Option 3 ID : **4410095944557**
Option 4 ID : **4410095944558**

Q.8 Divide ₹3,500 into three parts in such a way that half of the first part, one-fourth of the second part, and one-eighth of the third part are equal. Find the value of the first part (in ₹).

Ans
1. 200
2. 400
3. 500
4. 700

Question ID : **441009545997**
Option 1 ID : **4410092139386**
Option 2 ID : **4410092139387**
Option 3 ID : **4410092139384**
Option 4 ID : **4410092139385**

QuickSarkari.com | WhatsApp Channel | Telegram: t.me/quick_sarkari

Q.9 One side of a parallelogram is 32 cm and the corresponding altitude is 8 cm. Find the area of the parallelogram.

Ans
✗ 1. 16 cm2
✗ 2. 96 cm2
✓ 3. 256 cm2
✗ 4. 40 cm2

Question ID : **4410091505016**
Option 1 ID : **4410095944422**
Option 2 ID : **4410095944424**
Option 3 ID : **4410095944423**
Option 4 ID : **4410095944421**

Q.10 If the third proportional of 120 and 60 is A, then what is the value of A?

Ans
✓ 1. 30
✗ 2. 25
✗ 3. 20
✗ 4. 15

Question ID : **4410091512430**
Option 1 ID : **4410095973801**
Option 2 ID : **4410095973800**
Option 3 ID : **4410095973799**
Option 4 ID : **4410095973798**

Q.11 Find the total surface area of a cuboid whose volume is 896 cm^3, breadth is 7 cm and height is 4 cm.

Ans
✗ 1. 780 cm2
✗ 2. 720 cm2
✗ 3. 740 cm2
✓ 4. 760 cm2

Question ID : **4410091524308**
Option 1 ID : **4410096020503**
Option 2 ID : **4410096020500**
Option 3 ID : **4410096020501**
Option 4 ID : **4410096020502**

QuickSarkari.com | WhatsApp Channel | Telegram: t.me/quick_sarkari

Q.12 The perimeter of one face of a cube is 48 cm. Its volume is:

Ans
✗ 1. 1024 cm3
✗ 2. 4096 cm3
✓ 3. 1728 cm3
✗ 4. 1296 cm3

Question ID : **4410091505114**
Option 1 ID : **4410095944811**
Option 2 ID : **4410095944810**
Option 3 ID : **4410095944809**
Option 4 ID : **4410095944812**

Q.13 The ratio of two numbers is 2 : 3 and their product is 864. Find the smallest number between the two numbers.

Ans
✓ 1. 24
✗ 2. 20
✗ 3. 18
✗ 4. 22

Question ID : **4410091512418**
Option 1 ID : **4410095973753**
Option 2 ID : **4410095973751**
Option 3 ID : **4410095973750**
Option 4 ID : **4410095973752**

Q.14 A solid iron sphere is melted and recast into a cone whose height is 4 times of its radius. If the radius of the original sphere is 16 cm, find the slant height of the cone (Use √17=4.1).

Ans
✗ 1. 48.3 cm
✗ 2. 60.8 cm
✓ 3. 65.6 cm
✗ 4. 54.2 cm

Question ID : **4410091524420**
Option 1 ID : **4410096020928**
Option 2 ID : **4410096020930**
Option 3 ID : **4410096020931**
Option 4 ID : **4410096020929**

QuickSarkari.com | WhatsApp Channel | Telegram: t.me/quick_sarkari

Q.15 A shopkeeper offers a discount of 16% on his articles. If the marked price of the article is ₹1,175, the selling price should be:

Ans
✗ 1. ₹1,059
✗ 2. ₹1,081
✗ 3. ₹954
✓ 4. ₹987

Question ID : **4410091515919**
Option 1 ID : **4410095987041**
Option 2 ID : **4410095987043**
Option 3 ID : **4410095987044**
Option 4 ID : **4410095987042**

Q.16 Find the area (in square units) of an equilateral triangle with one side of 8 units.

Ans
✗ 1. $14\sqrt{3}$
✓ 2. $16\sqrt{3}$
✗ 3. $8\sqrt{3}$
✗ 4. $12\sqrt{3}$

Question ID : **4410091520266**
Option 1 ID : **4410096004320**
Option 2 ID : **4410096004321**
Option 3 ID : **4410096004318**
Option 4 ID : **4410096004319**

Q.17 The cost price of 42 articles is equal to the selling price of 35 of them. The gain or loss percent is given by:

Ans
✗ 1. 25% gain
✗ 2. 20% loss
✓ 3. 20% gain
✗ 4. 25% loss

Question ID : **4410091515867**
Option 1 ID : **4410095986838**
Option 2 ID : **4410095986837**
Option 3 ID : **4410095986840**
Option 4 ID : **4410095986839**

QuickSarkari.com | WhatsApp Channel | Telegram: t.me/quick_sarkari

Q.18 A spherical tank has a radius of 3.6 meter. How much water can it store in cubic meter (Correct to two places of decimal and use π = 3.14)?

Ans
✗ 1. 178.72 m3
✗ 2. 148.32 m3
✗ 3. 153.48 m3
✓ 4. 195.33 m3

Question ID : **4410091524439**
Option 1 ID : **4410096021002**
Option 2 ID : **4410096021000**
Option 3 ID : **4410096021001**
Option 4 ID : **4410096021003**

Q.19 If the radius of the base of a cone be 28 cm and its curved surface area be 3080 cm^2, then the volume of the cone is:
(Use $\pi = \frac{22}{7}$)

Ans
✓ 1. 17248 cm3
✗ 2. 38808 cm3
✗ 3. 12936 cm3
✗ 4. 51744 cm3

Question ID : **4410091505074**
Option 1 ID : **4410095944655**
Option 2 ID : **4410095944656**
Option 3 ID : **4410095944654**
Option 4 ID : **4410095944653**

Q.20 A man goes from A to B at a uniform speed of 14 kmph and returns with a uniform speed of 6 kmph. His average speed for the whole journey is:

Ans
✗ 1. 8.6 kmph
✗ 2. 8.2 kmph
✓ 3. 8.4 kmph
✗ 4. 8 kmph

Question ID : **4410091519679**
Option 1 ID : **4410096002011**
Option 2 ID : **4410096002009**
Option 3 ID : **4410096002010**
Option 4 ID : **4410096002008**

Section : **English Language and Comprehension**

QuickSarkari.com | WhatsApp Channel | Telegram: t.me/quick_sarkari

Q.1 In the given question, a statement is divided into different segments. The first segment is fixed; rearrange the other segments to form a coherent statement.

A. Almost all the women that
B. and discussed their domestic troubles freely
C. of one sort or another,
D. she knew admitted unhappiness

Ans
✗ 1. ABDC
✓ 2. ADCB
✗ 3. ACBD
✗ 4. ACDB

Question ID : **4410091571577**
Option 1 ID : **4410096207334**
Option 2 ID : **4410096207333**
Option 3 ID : **4410096207335**
Option 4 ID : **4410096207336**

Q.2 Choose the most appropriate option to fill in the given blanks.
We arrived _____ at the venue, only to find that the event had been postponed until _____.

Ans
✗ 1. hardly; afterwards
✗ 2. slow; soon
✓ 3. late; tomorrow
✗ 4. later; next week

Question ID : **4410091495750**
Option 1 ID : **4410095908312**
Option 2 ID : **4410095908311**
Option 3 ID : **4410095908309**
Option 4 ID : **4410095908310**

Q.3 In the given question, a statement divided into different segments is given. The first segment is fixed, rearrange the other segments to form a coherent statement.
The teacher encouraged her
(A) solid evidence and logical reasoning
(B) students to think critically, asking
(C) and support their arguments with
(D) them to question assumptions

Ans
✓ 1. BDCA
✗ 2. ABDC
✗ 3. BACD
✗ 4. ABCD

Question ID : **4410091495614**
Option 1 ID : **4410095907786**
Option 2 ID : **4410095907788**
Option 3 ID : **4410095907785**
Option 4 ID : **4410095907787**

Q.4 In the given question, a statement divided into different segments is given. The first segment is fixed; rearrange the other segments to form a coherent statement.

A. There was a general opinion
B. and its removal was
C. that he couldn't have looked worse with a tail,
D. therefore a gratuitous effrontery

Ans
✗ 1. ADCB
✗ 2. ABDC
✓ 3. ACBD
✗ 4. ABCD

Question ID : **4410091571580**
Option 1 ID : **4410096207346**
Option 2 ID : **4410096207347**
Option 3 ID : **4410096207348**
Option 4 ID : **4410096207345**

Q.5 Select the option which means the same as the group of words given.

Causing feelings of happiness and pleasure.

Ans
✗ 1. Elegance
✗ 2. Hospitality
✗ 3. Celebration
✓ 4. Heartwarming

Question ID : **4410091571809**
Option 1 ID : **4410096208287**
Option 2 ID : **4410096208286**
Option 3 ID : **4410096208285**
Option 4 ID : **4410096208288**

Q.6 In the given question, a statement divided into different segments is given. Rearrange all the segments to form a coherent statement.
(A) sacrifice, the athlete finally achieved
(B) her dream of winning a gold medal
(C) after years of dedication and
(D) at the international championship

Ans
✗ 1. BDAC
✓ 2. CABD
✗ 3. DBAC
✗ 4. BCDA

Question ID : **4410091495618**
Option 1 ID : **4410095907803**
Option 2 ID : **4410095907801**
Option 3 ID : **4410095907804**
Option 4 ID : **4410095907802**

Q.7 Choose the correct adjective to complete the sentence.

The few mangoes which were not spoiled fetched a _____ price that profited the farmer.

Ans
✔ 1. high
✘ 2. small
✘ 3. fair
✘ 4. low

Question ID : **4410091492626**
Option 1 ID : **4410095896207**
Option 2 ID : **4410095896208**
Option 3 ID : **4410095896206**
Option 4 ID : **4410095896205**

Q.8 Choose the one word that can best replace the underlined segment without changing the meaning of the sentence.
The doctor advised him to avoid eating too much food regularly.

Ans
✘ 1. hunger
✘ 2. greed
✘ 3. appetite
✔ 4. gluttony

Question ID : **4410091479613**
Option 1 ID : **4410095845549**
Option 2 ID : **4410095845551**
Option 3 ID : **4410095845548**
Option 4 ID : **4410095845550**

Q.9 In the given question, a statement divided into different segments is given. Rearrange all the segments to form a coherent statement.

make them the Roof of the World(A)/ one of the most beautiful mountain ranges in the world(B)/ and they stretch across several Asian countries(C)/ the Himalayas are(D)/where their great height and spiritual importance(E)/

Ans
✘ 1. BCEAD
✘ 2. CEADB
✔ 3. DBCEA
✘ 4. ABCDE

Question ID : **4410091492977**
Option 1 ID : **4410095897594**
Option 2 ID : **4410095897593**
Option 3 ID : **4410095897595**
Option 4 ID : **4410095897596**

QuickSarkari.com | WhatsApp Channel | Telegram: t.me/quick_sarkari

Q.10 Select the option which can be used as a one-word substitute for the given group of words.
A person who is skilled in judging and appreciating art, food, or music is referred to as a:

Ans
1. Virtuoso
2. Critique
3. Veteran
4. Connoisseur

Question ID : **4410091495675**
Option 1 ID : **4410095908024**
Option 2 ID : **4410095908022**
Option 3 ID : **4410095908023**
Option 4 ID : **4410095908021**

Q.11 Which version of the given sentence uses the correct form of future tense?

By this time next year, I shall bought a new car.

Ans
1. By this time next year, I shall have bought a new car.
2. By this time next year, I shall buying a new car.
3. By this time next year, I shall has bought a new car.
4. By this time next year, I shall be buy a new car.

Question ID : **4410091492746**
Option 1 ID : **4410095896665**
Option 2 ID : **4410095896667**
Option 3 ID : **4410095896666**
Option 4 ID : **4410095896668**

Q.12 Choose the most appropriate option to fill in the given blank.
She _____ visits her ancestral home; perhaps only once every decade since she moved abroad.

Ans
1. much
2. rare
3. seldom
4. often

Question ID : **4410091495737**
Option 1 ID : **4410095908264**
Option 2 ID : **4410095908263**
Option 3 ID : **4410095908262**
Option 4 ID : **4410095908261**

QuickSarkari.com | WhatsApp Channel | Telegram: t.me/quick_sarkari

Q.13 Choose the correct adjective to complete the sentence.

The owner was happy because his dog won a ____ prize at the competition.

Ans
1. small
2. valuable
3. cheap
4. ordinary

Question ID : **4410091492632**
Option 1 ID : **4410095896229**
Option 2 ID : **4410095896230**
Option 3 ID : **4410095896232**
Option 4 ID : **4410095896231**

Q.14 Select the option which means the same as the group of words given.

The state of being legally responsible for something

Ans
1. Liberty
2. Loan
3. Inflation
4. Liability

Question ID : **4410091571817**
Option 1 ID : **4410096208317**
Option 2 ID : **4410096208320**
Option 3 ID : **4410096208318**
Option 4 ID : **4410096208319**

Q.15 Select the most appropriate verb to fill in the blank.

If Arvind works harder, he _____ score better marks.

Ans
1. should
2. will
3. might have
4. had

Question ID : **4410091571338**
Option 1 ID : **4410096206379**
Option 2 ID : **4410096206382**
Option 3 ID : **4410096206380**
Option 4 ID : **4410096206381**

QuickSarkari.com | WhatsApp Channel | Telegram: t.me/quick_sarkari

Q.16 Select the option which can be used as a one-word substitute for the given group of words.
The place where birds are kept is known as a/an:

Ans
✗ 1. Farm
✓ 2. Aviary
✗ 3. Kennel
✗ 4. Stable

Question ID : **4410091495643**
Option 1 ID : **4410095907900**
Option 2 ID : **4410095907899**
Option 3 ID : **4410095907897**
Option 4 ID : **4410095907898**

Q.17 Select the option which means the same as the group of words given.

An area of activity, interest or knowledge.

Ans
✗ 1. Profession
✓ 2. Realm
✗ 3. Department
✗ 4. Territory

Question ID : **4410091571804**
Option 1 ID : **4410096208266**
Option 2 ID : **4410096208265**
Option 3 ID : **4410096208268**
Option 4 ID : **4410096208267**

Q.18 Choose the one word that can best replace the underlined segment without changing the meaning of the sentence.
Despite repeated reminders about collective responsibility, the principal cautioned students against showing excessive pride in their personal accomplishments, warning that such attitudes often erode collaborative learning environments.

Ans
✗ 1. modesty
✗ 2. caution
✗ 3. adulation
✓ 4. hubris

Question ID : **4410091479604**
Option 1 ID : **4410095845513**
Option 2 ID : **4410095845515**
Option 3 ID : **4410095845514**
Option 4 ID : **4410095845512**

QuickSarkari.com | WhatsApp Channel | Telegram: t.me/quick_sarkari

Q.19 Choose the most appropriate option to fill in the given blank.
The team practiced relentlessly; _____, they still failed to qualify for the final round.

Ans
✗ 1. consequently
✓ 2. however
✗ 3. moreover
✗ 4. since

Question ID : **4410091495752**
Option 1 ID : **4410095908318**
Option 2 ID : **4410095908319**
Option 3 ID : **4410095908317**
Option 4 ID : **4410095908320**

Q.20 In the given question, a statement divided into different segments is given.
Rearrange all the segments to form a coherent statement.

A. come leaping along, and
B. on the ground, a hare would often
C. jump right over the little Tree
D. in winter, when the snow lay glittering

Ans
✗ 1. BCDA
✗ 2. ADBC
✗ 3. CADB
✓ 4. DBAC

Question ID : **4410091571592**
Option 1 ID : **4410096207396**
Option 2 ID : **4410096207394**
Option 3 ID : **4410096207395**
Option 4 ID : **4410096207393**

Section : English Language and Comprehension1

Q.1 Choose the correct direct narration of the given sentence and fill in the blank.

Samson confessed that he had taken my notebook by mistake.

Samson confessed, _____

Ans
✗ 1. "I take your notebook by mistake."
✗ 2. "I am taking your notebook by mistake."
✗ 3. "I will take your notebook by mistake."
✓ 4. "I took your notebook by mistake."

Question ID : **4410091571453**
Option 1 ID : **4410096206861**
Option 2 ID : **4410096206864**
Option 3 ID : **4410096206862**
Option 4 ID : **4410096206863**

QuickSarkari.com | WhatsApp Channel | Telegram: t.me/quick_sarkari

Q.2 Choose the correct option to convert the following passive voice sentence into active voice.
The new species of orchid was discovered by researchers in the Western Ghats.

Ans
✗ 1. Researchers discovers the new species of orchid in the Western Ghats.
✓ 2. Researchers discovered the new species of orchid in the Western Ghats.
✗ 3. Researchers have discovering the new species of orchid in the Western Ghats.
✗ 4. Researchers were discovering the new species of orchid in the Western Ghats.

Question ID : **4410091479672**
Option 1 ID : **4410095845793**
Option 2 ID : **4410095845792**
Option 3 ID : **4410095845795**
Option 4 ID : **4410095845794**

Q.3 Choose the correct indirect narration of the given sentence and fill in the blank.
Arjunan said, "My friends are waiting outside."
Arjunan said _____.

Ans
✗ 1. that my friends were waiting outside.
✓ 2. that his friends were waiting outside.
✗ 3. that his friends are waiting outside.
✗ 4. that their friends were waiting outside.

Question ID : **4410091571436**
Option 1 ID : **4410096206807**
Option 2 ID : **4410096206805**
Option 3 ID : **4410096206806**
Option 4 ID : **4410096206808**

Q.4 Select the wrongly spelt word.

Ans
✗ 1. Anxiety
✗ 2. Cobbler
✗ 3. Resource
✓ 4. Ignit

Question ID : **4410091493182**
Option 1 ID : **4410095898401**
Option 2 ID : **4410095898400**
Option 3 ID : **4410095898402**
Option 4 ID : **4410095898403**

QuickSarkari

Q.5 Rectify the sentence by selecting the correct spelling from the options.
Agapie had seen the Dresden figure in Madame Valtour's possession and at once guessed the whole akusation.

Ans
✔ 1. accusation
✘ 2. acusation
✘ 3. accusetion
✘ 4. accusasion

Question ID : **4410091571507**
Option 1 ID : **4410096207049**
Option 2 ID : **4410096207050**
Option 3 ID : **4410096207052**
Option 4 ID : **4410096207051**

Q.6 Choose the most appropriate option to fill in the given blank.
Direct form: The teacher said, "I will review your essays here tomorrow."
Indirect form: _____

Ans
✘ 1. The teacher said that she would review my essays here tomorrow.
✔ 2. The teacher said that she would review my essays there the next day.
✘ 3. The teacher said that I would review your essays there the next day.
✘ 4. The teacher said that she reviewed my essays there the next day.

Question ID : **4410091495806**
Option 1 ID : **4410095908527**
Option 2 ID : **4410095908528**
Option 3 ID : **4410095908526**
Option 4 ID : **4410095908525**

Q.7 Select the option that expresses the given sentence in passive voice.

Marwa cleaned the classroom before lunch.

Ans
✔ 1. The classroom was cleaned before lunch by Marwa.
✘ 2. The classroom is cleaning Marwa before lunch.
✘ 3. The classroom have been cleaned before lunch by Marwa.
✘ 4. The classroom has been cleaning before lunch by Marwa.

Question ID : **4410091571377**
Option 1 ID : **4410096206570**
Option 2 ID : **4410096206569**
Option 3 ID : **4410096206572**
Option 4 ID : **4410096206571**

QuickSarkari.com | WhatsApp Channel | Telegram: t.me/quick_sarkari

Q.8 Read the given options carefully and choose the sentence that contains a spelling mistake.

Ans
✔ 1. The bakery displayed a variety of delicious pasteries.
✘ 2. The villagers celebrated the festival with great enthusiasm.
✘ 3. The writer completed the final draft of the novel.
✘ 4. The soldier showed immense courage during the rescue operation.

Question ID : **4410091479827**
Option 1 ID : **4410095846408**
Option 2 ID : **4410095846406**
Option 3 ID : **4410095846409**
Option 4 ID : **4410095846407**

Q.9 Rectify the sentence by selecting the correct spelling from the options.

The moment that the wagon rattled out of the yard away to the station, Madame Solisainte settled herself into a state of nervous expectansy.

Ans
✘ 1. expactency
✘ 2. expactancy
✔ 3. expectancy
✘ 4. expectency

Question ID : **4410091571510**
Option 1 ID : **4410096207061**
Option 2 ID : **4410096207063**
Option 3 ID : **4410096207064**
Option 4 ID : **4410096207062**

Q.10 Rectify the sentence by selecting the correct spelling from the options.

The stadium is so big that it can seat more than one lakh spectaters.

Ans
✘ 1. speactators
✘ 2. spectetors
✔ 3. spectators
✘ 4. spectaeters

Question ID : **4410091493210**
Option 1 ID : **4410095898514**
Option 2 ID : **4410095898513**
Option 3 ID : **4410095898515**
Option 4 ID : **4410095898512**

QuickSarkari.com | WhatsApp Channel | Telegram: t.me/quick_sarkari

Comprehension:

Read the following passage carefully and answer the questions that follow.

Most large-scale Artificial Intelligence (AI) deployments are housed in data centres, including those operated by cloud service providers. These data centres can take a heavy toll on the planet. The electronics they house rely on a staggering amount of grist: making a 2 kg computer requires 800 kg of raw materials. As well, the microchips that power AI need rare earth elements, which are often mined in environmentally destructive ways, noted Navigating New Horizons.
The second problem is that data centres produce electronic waste, which often contains hazardous substances, like mercury and lead.
Third, data centres use water during construction and, once operational, to cool electrical components. Globally, AI-related infrastructure may soon consume six times more water than Denmark, a country of 6 million, according to one estimate. That is a problem when a quarter of humanity already lacks access to clean water and sanitation.

SubQuestion No : 11

Q.11 Which of the following most accurately states the main idea of the passage?

Ans

✗ 1. Data centres mostly improve global water access and sustainability.

✗ 2. Artificial Intelligence development benefits outweigh all environmental concerns mentioned.

✓ 3. Artificial Intelligence infrastructure significantly harms the environment through resource strain.

✗ 4. Artificial Intelligence will fully replace traditional computing systems very soon.

Question ID : **4410091571844**
Option 1 ID : **4410096208429**
Option 2 ID : **4410096208430**
Option 3 ID : **4410096208427**
Option 4 ID : **4410096208428**

Comprehension:

Read the following passage carefully and answer the questions that follow.

Most large-scale Artificial Intelligence (AI) deployments are housed in data centres, including those operated by cloud service providers. These data centres can take a heavy toll on the planet. The electronics they house rely on a staggering amount of grist: making a 2 kg computer requires 800 kg of raw materials. As well, the microchips that power AI need rare earth elements, which are often mined in environmentally destructive ways, noted Navigating New Horizons.
The second problem is that data centres produce electronic waste, which often contains hazardous substances, like mercury and lead.
Third, data centres use water during construction and, once operational, to cool electrical components. Globally, AI-related infrastructure may soon consume six times more water than Denmark, a country of 6 million, according to one estimate. That is a problem when a quarter of humanity already lacks access to clean water and sanitation.

SubQuestion No : 12

Q.12 Which is the best description of the tone of the passage?

Ans

✗ 1. Humorous

✗ 2. Sarcastic

✓ 3. Cautionary

✗ 4. Celebratory

Question ID : **4410091571845**
Option 1 ID : **4410096208431**
Option 2 ID : **4410096208433**
Option 3 ID : **4410096208432**
Option 4 ID : **4410096208434**

Comprehension:

Read the following passage carefully and answer the questions that follow.

Most large-scale Artificial Intelligence (AI) deployments are housed in data centres, including those operated by cloud service providers. These data centres can take a heavy toll on the planet. The electronics they house rely on a staggering amount of grist: making a 2 kg computer requires 800 kg of raw materials. As well, the microchips that power AI need rare earth elements, which are often mined in environmentally destructive ways, noted Navigating New Horizons.
The second problem is that data centres produce electronic waste, which often contains hazardous substances, like mercury and lead.
Third, data centres use water during construction and, once operational, to cool electrical components. Globally, AI-related infrastructure may soon consume six times more water than Denmark, a country of 6 million, according to one estimate. That is a problem when a quarter of humanity already lacks access to clean water and sanitation.

SubQuestion No : 13

Q.13 What is the synonym of the word 'staggering' from the passage?

Ans

✔ 1. Astonishing

✗ 2. Segregated

✗ 3. Simplified

✗ 4. Adventurous

Question ID : **4410091571846**
Option 1 ID : **4410096208437**
Option 2 ID : **4410096208436**
Option 3 ID : **4410096208438**
Option 4 ID : **4410096208435**

Comprehension:

Read the following passage carefully and answer the questions that follow.

Most large-scale Artificial Intelligence (AI) deployments are housed in data centres, including those operated by cloud service providers. These data centres can take a heavy toll on the planet. The electronics they house rely on a staggering amount of grist: making a 2 kg computer requires 800 kg of raw materials. As well, the microchips that power AI need rare earth elements, which are often mined in environmentally destructive ways, noted Navigating New Horizons.
The second problem is that data centres produce electronic waste, which often contains hazardous substances, like mercury and lead.
Third, data centres use water during construction and, once operational, to cool electrical components. Globally, AI-related infrastructure may soon consume six times more water than Denmark, a country of 6 million, according to one estimate. That is a problem when a quarter of humanity already lacks access to clean water and sanitation.

SubQuestion No : 14

Q.14 Which among the following represents the structure of the passage?

Ans

✗ 1. Persuasive

✔ 2. Problem–evidence

✗ 3. Comparison

✗ 4. Narrative and chronology

Question ID : **4410091571847**
Option 1 ID : **4410096208441**
Option 2 ID : **4410096208442**
Option 3 ID : **4410096208440**
Option 4 ID : **4410096208439**

Comprehension:

Read the following passage carefully and answer the questions that follow.

Most large-scale Artificial Intelligence (AI) deployments are housed in data centres, including those operated by cloud service providers. These data centres can take a heavy toll on the planet. The electronics they house rely on a staggering amount of grist: making a 2 kg computer requires 800 kg of raw materials. As well, the microchips that power AI need rare earth elements, which are often mined in environmentally destructive ways, noted Navigating New Horizons.
The second problem is that data centres produce electronic waste, which often contains hazardous substances, like mercury and lead.
Third, data centres use water during construction and, once operational, to cool electrical components. Globally, AI-related infrastructure may soon consume six times more water than Denmark, a country of 6 million, according to one estimate. That is a problem when a quarter of humanity already lacks access to clean water and sanitation.

SubQuestion No : 15

Q.15 What is the antonym of the word 'hazardous'?

Ans

✔ 1. Safe

✘ 2. Hybrid

✘ 3. Secret

✘ 4. Heating

Question ID : **4410091571848**
Option 1 ID : **4410096208445**
Option 2 ID : **4410096208444**
Option 3 ID : **4410096208446**
Option 4 ID : **4410096208443**

Comprehension:

Read the following passage and answer the questions that follow.

Caterpillars are the larval form of moths, butterflies, and skippers. Like all insects, they have three pairs of true, jointed legs, which are attached to the three thoracic segments of their cylindrical bodies. Most species also have several pairs of fleshy prolegs on their abdominal segments. Prolegs are usually tipped with curved rows of minute hooklets to help the animals hold on to surfaces, such as twigs and leaves. The caterpillars of many familiar lepidopterans, such as monarchs and hawk moths, have prolegs on segments 3 through 6 and 10 of the abdomen (that is, four pairs on the mid-abdomen and one pair near the bottom), though the number may be reduced in some species. For example, inchworms and cabbage loopers have only two or three pairs of prolegs, which is why these caterpillars draw their hind end up to meet the front before extending forward again.

SubQuestion No : 16

Q.16 What does the passage suggest about the prolegs of inchworms and cabbage loopers?

Ans

✘ 1. They have more prolegs than other caterpillars.

✘ 2. Their prolegs are much larger.

✘ 3. They have no prolegs at all.

✔ 4. They have fewer prolegs than other caterpillars.

Question ID : **4410091495464**
Option 1 ID : **4410095907177**
Option 2 ID : **4410095907178**
Option 3 ID : **4410095907180**
Option 4 ID : **4410095907179**

Comprehension:

Read the following passage and answer the questions that follow.

Caterpillars are the larval form of moths, butterflies, and skippers. Like all insects, they have three pairs of true, jointed legs, which are attached to the three thoracic segments of their cylindrical bodies. Most species also have several pairs of fleshy prolegs on their abdominal segments. Prolegs are usually tipped with curved rows of minute hooklets to help the animals hold on to surfaces, such as twigs and leaves. The caterpillars of many familiar lepidopterans, such as monarchs and hawk moths, have prolegs on segments 3 through 6 and 10 of the abdomen (that is, four pairs on the mid-abdomen and one pair near the bottom), though the number may be reduced in some species. For example, inchworms and cabbage loopers have only two or three pairs of prolegs, which is why these caterpillars draw their hind end up to meet the front before extending forward again.

SubQuestion No : 17

Q.17 What is the tone of the passage?

Ans

✗ 1. Humorous

✓ 2. Informative

✗ 3. Persuasive

✗ 4. Narrative

Question ID : **4410091495465**
Option 1 ID : **4410095907181**
Option 2 ID : **4410095907182**
Option 3 ID : **4410095907183**
Option 4 ID : **4410095907184**

Comprehension:

Read the following passage and answer the questions that follow.

Caterpillars are the larval form of moths, butterflies, and skippers. Like all insects, they have three pairs of true, jointed legs, which are attached to the three thoracic segments of their cylindrical bodies. Most species also have several pairs of fleshy prolegs on their abdominal segments. Prolegs are usually tipped with curved rows of minute hooklets to help the animals hold on to surfaces, such as twigs and leaves. The caterpillars of many familiar lepidopterans, such as monarchs and hawk moths, have prolegs on segments 3 through 6 and 10 of the abdomen (that is, four pairs on the mid-abdomen and one pair near the bottom), though the number may be reduced in some species. For example, inchworms and cabbage loopers have only two or three pairs of prolegs, which is why these caterpillars draw their hind end up to meet the front before extending forward again.

SubQuestion No : 18

Q.18 What inference can be made from the description of prolegs in caterpillars?

Ans

✗ 1. Prolegs are found only on butterflies of certain species.

✗ 2. Caterpillars with prolegs cannot move.

✗ 3. Prolegs are unnecessary for the caterpillar's movement.

✓ 4. Prolegs help caterpillars move more efficiently on surfaces.

Question ID : **4410091495466**
Option 1 ID : **4410095907188**
Option 2 ID : **4410095907187**
Option 3 ID : **4410095907185**
Option 4 ID : **4410095907186**

QuickSarkari.com | WhatsApp Channel | Telegram: t.me/quick_sarkari

Comprehension:

Read the following passage and answer the questions that follow.

Caterpillars are the larval form of moths, butterflies, and skippers. Like all insects, they have three pairs of true, jointed legs, which are attached to the three thoracic segments of their cylindrical bodies. Most species also have several pairs of fleshy prolegs on their abdominal segments. Prolegs are usually tipped with curved rows of minute hooklets to help the animals hold on to surfaces, such as twigs and leaves. The caterpillars of many familiar lepidopterans, such as monarchs and hawk moths, have prolegs on segments 3 through 6 and 10 of the abdomen (that is, four pairs on the mid-abdomen and one pair near the bottom), though the number may be reduced in some species. For example, inchworms and cabbage loopers have only two or three pairs of prolegs, which is why these caterpillars draw their hind end up to meet the front before extending forward again.

SubQuestion No : 19

Q.19 What would be the best title for the passage?

Ans

✗ 1. The Life of a Caterpillar

✗ 2. The Stages of Butterfly Development

✓ 3. Caterpillar Anatomy and Adaptations

✗ 4. The Importance of Cylindrical Bodies

Question ID : **4410091495467**
Option 1 ID : **4410095907189**
Option 2 ID : **4410095907191**
Option 3 ID : **4410095907190**
Option 4 ID : **4410095907192**

Comprehension:

Read the following passage and answer the questions that follow.

Caterpillars are the larval form of moths, butterflies, and skippers. Like all insects, they have three pairs of true, jointed legs, which are attached to the three thoracic segments of their cylindrical bodies. Most species also have several pairs of fleshy prolegs on their abdominal segments. Prolegs are usually tipped with curved rows of minute hooklets to help the animals hold on to surfaces, such as twigs and leaves. The caterpillars of many familiar lepidopterans, such as monarchs and hawk moths, have prolegs on segments 3 through 6 and 10 of the abdomen (that is, four pairs on the mid-abdomen and one pair near the bottom), though the number may be reduced in some species. For example, inchworms and cabbage loopers have only two or three pairs of prolegs, which is why these caterpillars draw their hind end up to meet the front before extending forward again.

SubQuestion No : 20

Q.20 Which of the following is NOT mentioned as a feature of caterpillar anatomy?

Ans

✗ 1. Curved hooklets on prolegs

✓ 2. Wings

✗ 3. Jointed legs

✗ 4. Fleshy prolegs

Question ID : **4410091495468**
Option 1 ID : **4410095907195**
Option 2 ID : **4410095907196**
Option 3 ID : **4410095907193**
Option 4 ID : **4410095907194**

Section : **Hindi Language and Comprehension**

QuickSarkari.com | WhatsApp Channel | Telegram: t.me/quick_sarkari

Q.1 **वाक्यांश के लिए सार्थक शब्द दें ।**
जो कल्पना से परे हो

Ans
✗ 1. अकल्पनीय
✓ 2. कल्पनातीत
✗ 3. अकल्पित
✗ 4. कल्पना पर

Question ID : **4410094754 74**
Option 1 ID : **4410091857310**
Option 2 ID : **4410091857312**
Option 3 ID : **4410091857309**
Option 4 ID : **4410091857311**

Q.2 **'दूध पिलाकर साँप पोसना' लोकोक्ति का क्या अर्थ है?**

Ans
✓ 1. शत्रु पर उपकार करना
✗ 2. दूध से दही बनाना
✗ 3. शत्रु बनाना
✗ 4. तुम्हारी बात सच हो

Question ID : **4410091565076**
Option 1 ID : **4410096181856**
Option 2 ID : **4410096181858**
Option 3 ID : **4410096181855**
Option 4 ID : **4410096181857**

Q.3 **दिये गये वाक्यांश के लिए एक शब्द चुनें--**

'बहुत काम करते रहने वाला'

Ans
✓ 1. कर्मठ
✗ 2. कुशल
✗ 3. कृत्यक
✗ 4. काहिल

Question ID : **4410091501052**
Option 1 ID : **4410095928659**
Option 2 ID : **4410095928658**
Option 3 ID : **4410095928661**
Option 4 ID : **4410095928660**

QuickSarkari.com | WhatsApp Channel | Telegram: t.me/quick_sarkari

Q.4 निम्नलिखित वाक्य के रिक्त स्थान में उचित क्रिया की पूर्ति कीजिए -
'वह _____ रही थी।'

Ans
✗ 1. आता
✗ 2. जाता
✓ 3. खेल-कूद
✗ 4. खाता

Question ID : **441009368604**
Option 1 ID : **4410091440390**
Option 2 ID : **4410091440391**
Option 3 ID : **4410091440389**
Option 4 ID : **4410091440392**

Q.5 सर्वोचित क्रिया-विशेषण शब्द से दिये गये वाक्य का रिक्त स्थान पूर्ण करें--
दिल्ली से आगरा तक की दूरी तय करने में ..... चार घंटे लगते हैं।

Ans
✗ 1. स्वत:
✗ 2. निपट
✗ 3. कुछ
✓ 4. लगभग

Question ID : **4410091502829**
Option 1 ID : **4410095935613**
Option 2 ID : **4410095935612**
Option 3 ID : **4410095935615**
Option 4 ID : **4410095935614**

Q.6 निम्नलिखित वाक्य के रिक्त स्थान में उचित क्रिया-विशेषण की पूर्ति कीजिए-
'नगर यहाँ से _____ पड़ता है ।'

Ans
✗ 1. कमजोर
✗ 2. भर
✗ 3. अधिक
✓ 4. दूर

Question ID : **4410091267394**
Option 1 ID : **4410095002278**
Option 2 ID : **4410095002281**
Option 3 ID : **4410095002279**
Option 4 ID : **4410095002280**

QuickSarkari.com | WhatsApp Channel | Telegram: t.me/quick_sarkari

Q.7 'जो कभी बूढ़ा न हो' वाक्यांश के लिए सार्थक शब्द का चयन करें-

Ans
✗ 1. अज्ञात
✗ 2. अच्युत
✗ 3. अजेय
✓ 4. अजर

Question ID : **441009475300**
Option 1 ID : **4410091856615**
Option 2 ID : **4410091856616**
Option 3 ID : **4410091856614**
Option 4 ID : **4410091856613**

Q.8 'नाच नचाना' मुहावरे का क्या अर्थ है?

Ans
✓ 1. मनचाही करवाना
✗ 2. दोनों तरफ़ रहना
✗ 3. जल्दी मरने वाला
✗ 4. किसी गीत पर नाचना

Question ID : **4410091565049**
Option 1 ID : **4410096181739**
Option 2 ID : **4410096181741**
Option 3 ID : **4410096181740**
Option 4 ID : **4410096181742**

Q.9 'जिस पर कोई रोक-टोक न हो' वाक्यांश के लिए सार्थक शब्द होगा-

Ans
✗ 1. अनिस्तीर्ण
✗ 2. अनियमित
✗ 3. अनित्यवादी
✓ 4. अनियंत्रित

Question ID : **44100952284**
Option 1 ID : **441009208254**
Option 2 ID : **441009208252**
Option 3 ID : **441009208253**
Option 4 ID : **441009208251**

QuickSarkari.com | WhatsApp Channel | Telegram: t.me/quick_sarkari

Q.10 **निम्नलिखित मुहावरे का सही अर्थ है -**

कान काटना -5807

Ans
✔ 1. बहुत चतुर होना
✘ 2. बहुत घाटा होना
✘ 3. बिल्कुल परवाह न करना
✘ 4. सजा देना

Question ID : **4410091446087**
Option 1 ID : **4410091743030**
Option 2 ID : **4410091743031**
Option 3 ID : **4410091743029**
Option 4 ID : **4410091743032**

Q.11 **'दूर के ढोल सुहावने' लोकोक्ति का क्या अर्थ है?**

Ans
✔ 1. दूर से चीज़ अच्छी लगती है
✘ 2. ढोल बजाना
✘ 3. दूर जाना
✘ 4. थकने पर विश्राम करना

Question ID : **4410091565068**
Option 1 ID : **4410096181823**
Option 2 ID : **4410096181826**
Option 3 ID : **4410096181824**
Option 4 ID : **4410096181825**

Q.12 **सर्वोचित कारक चिह्न से दिये गये वाक्य का रिक्त स्थान पूर्ण करें--**

बच्चों को हर रोज़ खेलने ..... साथ ही पौष्टिक भोजन भी करना चाहिए।

Ans
✘ 1. को
✘ 2. से
✔ 3. के
✘ 4. में

Question ID : **4410091502192**
Option 1 ID : **4410095933137**
Option 2 ID : **4410095933139**
Option 3 ID : **4410095933136**
Option 4 ID : **4410095933138**

QuickSarkari.com | WhatsApp Channel | Telegram: t.me/quick_sarkari

Q.13 'चिराग तले अंधेरा' लोकोक्ति का अर्थ है--

Ans
✔ 1. अपनी बुराई नहीं दिखायी देती
✘ 2. चिराग के नीचे अंधेरा होता है
✘ 3. घर का ही कोई नुकसान करता है
✘ 4. चिराग पास की चीज़े नहीं दिखा पाता

Question ID : **44100948794**
Option 1 ID : **441009194486**
Option 2 ID : **441009194484**
Option 3 ID : **441009194487**
Option 4 ID : **441009194485**

Q.14 सर्वोचित कारक चिह्न से दिये गये वाक्य का रिक्त स्थान पूर्ण करें--

कल मैंने बाज़ार ..... एक सुंदर लाल रंग की साड़ी खरीदी।

Ans
✘ 1. पर
✘ 2. में
✔ 3. से
✘ 4. द्वारा

Question ID : **4410091502187**
Option 1 ID : **4410095933117**
Option 2 ID : **4410095933116**
Option 3 ID : **4410095933119**
Option 4 ID : **4410095933118**

Q.15 निम्न में से कौन-सा मुहावरा अपने अर्थ से असुमेलित है?

Ans
✔ 1. नाक का बाल होना -- कष्ट पहुँचाने वाला होना
✘ 2. दो दिन का मेहमान -- जल्दी मरने वाला
✘ 3. नस पहचानना -- अच्छी तरह जानना
✘ 4. नाक कटना -- बदनामी होना

Question ID : **4410091503005**
Option 1 ID : **4410095936267**
Option 2 ID : **4410095936264**
Option 3 ID : **4410095936265**
Option 4 ID : **4410095936266**

QuickSarkari.com | WhatsApp Channel | Telegram: t.me/quick_sarkari

Q.16 नीचे दिए गए वाक्य खंडों का क्रम सही करें।
अ. पुनर्जागरण
ब. दो जातीय संस्कृतियों की
स. रचनात्मक ऊर्जा है
द. टकराहट से उत्पन्न

Ans
✗ 1. अ, ब, स, द
✓ 2. अ, ब, द, स
✗ 3. स, द, अ, ब
✗ 4. ब, अ, द, स

Question ID : 441009289720
Option 1 ID : 4410091125840
Option 2 ID : 4410091125838
Option 3 ID : 4410091125841
Option 4 ID : 4410091125839

Q.17 सर्वोचित क्रिया शब्द से दिये गये वाक्य का रिक्त स्थान पूर्ण करें--

शिक्षक ने छात्रों को मेहनत से पढ़ने और आगे ..... की सलाह दी।

Ans
✗ 1. चलने
✓ 2. बढ़ने
✗ 3. दौड़ने
✗ 4. बड़ने

Question ID : 4410091502228
Option 1 ID : 4410095933286
Option 2 ID : 4410095933285
Option 3 ID : 4410095933287
Option 4 ID : 4410095933284

Q.18 दिए गए वाक्यांश के लिए एक शब्द होगा--

'ज्ञान प्राप्त करने की इच्छा रखने वाला'

Ans
✗ 1. सर्वज्ञ
✓ 2. जिज्ञासु
✗ 3. जागरूक
✗ 4. उत्सुक

Question ID : 44100945011
Option 1 ID : 441009179263
Option 2 ID : 441009179262
Option 3 ID : 441009179264
Option 4 ID : 441009179261

QuickSarkari.com | WhatsApp Channel | Telegram: t.me/quick_sarkari

Q.19 दिए गए प्रश्न में, विभिन्न खंडों में विभाजित एक कथन दिया गया है। एक सुसंगत कथन बनाने के लिए सभी खंडों को पुनर्व्यवस्थित करें।
अपने गुणों (क) जगह आदर(ग) सत्कार होता था(ख) उसका सब(ङ) के कारण(घ)।

Ans
✗ 1. क ख ग घ ङ
✗ 2. क ङ घ ग ख
✓ 3. क घ ङ ग ख
✗ 4. क ख ग ङ घ

Question ID : **4410092912227**
Option 1 ID : **4410091131754**
Option 2 ID : **4410091131755**
Option 3 ID : **4410091131757**
Option 4 ID : **4410091131756**

Q.20 सर्वोचित क्रिया-विशेषण शब्द से दिये गये वाक्य का रिक्त स्थान पूर्ण करें--
सफलता पाने के लिए ..... कड़ी मेहनत और लगन की ज़रूरत होती है।

Ans
✓ 1. केवल
✗ 2. टुक
✗ 3. लगभग
✗ 4. बढ़कर

Question ID : **4410091502855**
Option 1 ID : **4410095935706**
Option 2 ID : **4410095935705**
Option 3 ID : **4410095935704**
Option 4 ID : **4410095935707**

Section : Hindi Language and Comprehension1

Q.1 'मेरे मित्र ने मुझे समय पर आने का अनुरोध किया।'
उपर्युक्त वाक्य में रेखांकित शब्द का पर्यायवाची है-

Ans
✗ 1. समीक्षा
✗ 2. विश्राम
✗ 3. आश्रय
✓ 4. निवेदन

Question ID : **4410091496732**
Option 1 ID : **4410095912175**
Option 2 ID : **4410095912177**
Option 3 ID : **4410095912174**
Option 4 ID : **4410095912176**

QuickSarkari.com | WhatsApp Channel | Telegram: t.me/quick_sarkari

Q.2 निम्नलिखित वाक्य में रेखांकित शब्द के लिए उपयुक्त विलोम शब्द चुनें।
सुंदरता व्यक्ति के कर्मों में देखनी चाहिए।

Ans
✗ 1. सभ्यता
✗ 2. सौंदर्य
✓ 3. कुरूपता
✗ 4. ईमानदारी

Question ID : **4410091565184**
Option 1 ID : **4410096182287**
Option 2 ID : **4410096182289**
Option 3 ID : **4410096182290**
Option 4 ID : **4410096182288**

Q.3 निम्नलिखित वाक्य में रेखांकित शब्द के लिए उपयुक्त पर्यायवाची शब्द चुनें।
उसकी पीड़ा को तुम नहीं समझ सकते।

Ans
✗ 1. दक्षता
✗ 2. कर्ण
✗ 3. लिप्सा
✓ 4. वेदना

Question ID : **4410091565142**
Option 1 ID : **4410096182115**
Option 2 ID : **4410096182118**
Option 3 ID : **4410096182116**
Option 4 ID : **4410096182117**

Q.4 वर्तनी की दृष्टि से दिये गये वाक्य का शुद्ध रूप पहचानें।
कला ओर चित्रकारी मन की भावनाओं को अभिव्यक्त करने का सुंदर तरीक़ा है।

Ans
✗ 1. कला और चित्रकारी मन की भावनओं को अभिव्यक्त करने का सुंदर तरीक़ा है।
✗ 2. कला और चित्रकारी मन की भावनाओं को अभीव्यक्त करने का सुंदर तरीक़ा है।
✓ 3. कला और चित्रकारी मन की भावनाओं को अभिव्यक्त करने का सुंदर तरीक़ा है।
✗ 4. कला और चित्रकारि मन की भावनाओं को अभिव्यक्त करने का सुंदर तरीक़ा है।

Question ID : **4410091505879**
Option 1 ID : **4410095947910**
Option 2 ID : **4410095947911**
Option 3 ID : **4410095947909**
Option 4 ID : **4410095947908**

QuickSarkari.com | WhatsApp Channel | Telegram: t.me/quick_sarkari

Q.5 निम्नलिखित वाक्य के किस भाग में वर्तनी की त्रुटि है?
हमारे देश का उथान कब होगा?

Ans
✔ 1. उथान
✘ 2. हमारे
✘ 3. देश का
✘ 4. कब होगा?

Question ID : **4410091565098**
Option 1 ID : **4410096181945**
Option 2 ID : **4410096181943**
Option 3 ID : **4410096181944**
Option 4 ID : **4410096181946**

Q.6 'बलिदान और आत्म-नियंत्रण के साथ की गई मेहनत को तपश्या कहते हैं।'
उपर्युक्त वाक्य में रेखांकित शब्द की त्रुटि पहचानकर सही विकल्प का चयन करें-

Ans
✘ 1. तपसया
✔ 2. तपस्या
✘ 3. तपशया
✘ 4. ताप्श्या

Question ID : **4410091496136**
Option 1 ID : **4410095909841**
Option 2 ID : **4410095909842**
Option 3 ID : **4410095909844**
Option 4 ID : **4410095909843**

Q.7 निम्नलिखित वाक्य में रेखांकित शब्द के लिए उपयुक्त पर्यायवाची शब्द चुनें।
तालाब में कमल खिले हुए हैं।

Ans
✔ 1. सरोवर
✘ 2. विदेह
✘ 3. उत्थान
✘ 4. कामना

Question ID : **4410091565130**
Option 1 ID : **4410096182070**
Option 2 ID : **4410096182067**
Option 3 ID : **4410096182068**
Option 4 ID : **4410096182069**

QuickSarkari.com | WhatsApp Channel | Telegram: t.me/quick_sarkari

Q.8 'ज्येष्ठ' के पर्याय से वाक्य का रिक्त स्थान पूर्ण करें--
ज़िया स्वाभाव से बहुत शांत और अपने ..... के प्रति अत्यधिक समर्पित है।

Ans
✗ 1. अनुज
✓ 2. अग्रज
✗ 3. सहयोगी
✗ 4. कनिष्ठ

Question ID : **4410091503896**
Option 1 ID : **4410095939882**
Option 2 ID : **4410095939883**
Option 3 ID : **4410095939884**
Option 4 ID : **4410095939885**

Q.9 'तम' के विलोम शब्द से वाक्य का रिक्त स्थान पूर्ण करें--
डॉ. अम्बेडकर ने समाज में समानता की ..... उत्पन्न करने का कार्य किया।

Ans
✗ 1. अनुभूति
✗ 2. आवश्यकता
✓ 3. ज्योति
✗ 4. इच्छा

Question ID : **4410091504014**
Option 1 ID : **4410095940371**
Option 2 ID : **4410095940373**
Option 3 ID : **4410095940372**
Option 4 ID : **4410095940370**

Q.10 वर्तनी की दृष्टि से दिये गये वाक्य का शुद्ध रूप पहचानें।
संगीत सूनने से मन को शांति और आराम मिलता है, यह तनाव कम करता है।

Ans
✓ 1. संगीत सुनने से मन को शांति और आराम मिलता है, यह तनाव कम करता है।
✗ 2. संगीत सुनने से मन को शांति और अराम मिलता है, यह तनाव कम करता है।
✗ 3. सन्गीत सुनने से मन को शांति और आराम मिलता है, यह तनाव कम करता है।
✗ 4. संगीत सुनने से मन को शांती और आराम मिलता है, यह तनाव कम करता है।

Question ID : **4410091505863**
Option 1 ID : **4410095947846**
Option 2 ID : **4410095947847**
Option 3 ID : **4410095947845**
Option 4 ID : **4410095947844**

QuickSarkari.com | WhatsApp Channel | Telegram: t.me/quick_sarkari

Comprehension:

निम्नलिखित गद्यांश को ध्यानपूर्वक पढ़ें और उससे संबंधित प्रश्नों के उत्तर दें-
भारत की 85% जनता गाँवों में रहती है। भारत की सच्ची तस्वीर गाँवों में ही देखी जा सकती है। हमारे कवियों ने गाँवों के अत्यंत लुभावने चित्र खींचे हैं। किसी ने उन्हें भारत की आत्मा कहा तो किसी ने देश का हृदय-स्पंदन। भारत के गाँव प्रकृति के झूले हैं। हरे-भरे खेत, झूमती सरसों, बरसता सावन, खुली हवा, सुगंधित हवा के झोंके, निर्दोष वातावरण, प्रदूषण से मुक्त रहन-सहन, शांत-मनोरम ऋतु चक्र, कूकती कोयल, नाचते मोर, धन्य-धान्य से भरे खेत-खलिहान यह है गाँव का मनोरम सत्य। इन बातों को देखकर प्रत्येक व्यक्ति का मन गाँवों में बसने की करता है। ऐसा प्रतीत होता है मानो चारों ओर शांति और खुशहाली का साम्राज्य हो। गाँवों का सामाजिक और सांस्कृतिक जीवन भी अत्यंत मनोहारी है। यहाँ के निवासी स्वभाव से सरल-हृदय, भोले और मधुर होते हैं। यही कारण है कि वे प्रकृति की हर लय पर नाचते-गाते और गुनगुनाते हैं। होली, दीपावली, तीज आदि त्योहारों पर ग्रामवासियों की मस्ती देखने योग्य होती है। सावन की मस्ती में जब कन्याएँ झूला झूलती हुई नाच और गा पड़ती हैं तो स्वर्ग धरती पर उत्तर आता है।

SubQuestion No : 11

Q.11 **भारत के कितने प्रतिशत जनता गाँवों में रहती है?**

Ans
✗ 1. 60 प्रतिशत
✗ 2. 100 प्रतिशत
✓ 3. 85 प्रतिशत
✗ 4. 40 प्रतिशत

Question ID : **4410091498685**
Option 1 ID : **4410095919647**
Option 2 ID : **4410095919644**
Option 3 ID : **4410095919645**
Option 4 ID : **4410095919646**

Comprehension:

निम्नलिखित गद्यांश को ध्यानपूर्वक पढ़ें और उससे संबंधित प्रश्नों के उत्तर दें-
भारत की 85% जनता गाँवों में रहती है। भारत की सच्ची तस्वीर गाँवों में ही देखी जा सकती है। हमारे कवियों ने गाँवों के अत्यंत लुभावने चित्र खींचे हैं। किसी ने उन्हें भारत की आत्मा कहा तो किसी ने देश का हृदय-स्पंदन। भारत के गाँव प्रकृति के झूले हैं। हरे-भरे खेत, झूमती सरसों, बरसता सावन, खुली हवा, सुगंधित हवा के झोंके, निर्दोष वातावरण, प्रदूषण से मुक्त रहन-सहन, शांत-मनोरम ऋतु चक्र, कूकती कोयल, नाचते मोर, धन्य-धान्य से भरे खेत-खलिहान यह है गाँव का मनोरम सत्य। इन बातों को देखकर प्रत्येक व्यक्ति का मन गाँवों में बसने की करता है। ऐसा प्रतीत होता है मानो चारों ओर शांति और खुशहाली का साम्राज्य हो। गाँवों का सामाजिक और सांस्कृतिक जीवन भी अत्यंत मनोहारी है। यहाँ के निवासी स्वभाव से सरल-हृदय, भोले और मधुर होते हैं। यही कारण है कि वे प्रकृति की हर लय पर नाचते-गाते और गुनगुनाते हैं। होली, दीपावली, तीज आदि त्योहारों पर ग्रामवासियों की मस्ती देखने योग्य होती है। सावन की मस्ती में जब कन्याएँ झूला झूलती हुई नाच और गा पड़ती हैं तो स्वर्ग धरती पर उत्तर आता है।

SubQuestion No : 12

Q.12 **कवियों ने भारत की आत्मा और देश का हृदय-स्पंदन किसे कहा है?**

Ans
✗ 1. शहर को
✗ 2. उद्योग को
✓ 3. गाँवों को
✗ 4. नारी को

Question ID : **4410091498686**
Option 1 ID : **4410095919650**
Option 2 ID : **4410095919651**
Option 3 ID : **4410095919649**
Option 4 ID : **4410095919648**

QuickSarkari.com | WhatsApp Channel | Telegram: t.me/quick_sarkari

Comprehension:

निम्नलिखित गद्यांश को ध्यानपूर्वक पढ़ें और उससे संबंधित प्रश्नों के उत्तर दें-
भारत की 85% जनता गाँवों में रहती है। भारत की सच्ची तस्वीर गाँवों में ही देखी जा सकती है। हमारे कवियों ने गाँवों के अत्यंत लुभावने चित्र खींचे हैं। किसी ने उन्हें भारत की आत्मा कहा तो किसी ने देश का हृदय-स्पंदन। भारत के गाँव प्रकृति के झूले हैं। हरे-भरे खेत, झूमती सरसों, बरसता सावन, खुली हवा, सुगंधित हवा के झोंके, निर्दोष वातावरण, प्रदूषण से मुक्त रहन-सहन, शांत-मनोरम ऋतु चक्र, कूकती कोयल, नाचते मोर, धन्य-धान्य से भरे खेत-खलिहान यह है गाँव का मनोरम सत्य। इन बातों को देखकर प्रत्येक व्यक्ति का मन गाँवों में बसने की करता है। ऐसा प्रतीत होता है मानो चारों ओर शांति और खुशहाली का साम्राज्य हो। गाँवों का सामाजिक और सांस्कृतिक जीवन भी अत्यंत मनोहारी है। यहाँ के निवासी स्वभाव से सरल-हृदय, भोले और मधुर होते हैं। यही कारण है कि वे प्रकृति की हर लय पर नाचते-गाते और गुनगुनाते हैं। होली, दीपावली, तीज आदि त्योहारों पर ग्रामवासियों की मस्ती देखने योग्य होती है। सावन की मस्ती में जब कन्याएँ झूला झूलती हुई नाच और गा पड़ती हैं तो स्वर्ग धरती पर उत्तर आता है।

SubQuestion No : 13

Q.13 **गाँव के निवासी स्वभाव से कैसे होते हैं?**

Ans
✗ 1. दुःखी, दरिद्र और क्रोधी
✗ 2. चतुर, चालाक और कपटी
✗ 3. कठोर-हृदय, और ईर्ष्यालु
✓ 4. सरल-हृदय, भोले और मधुर

Question ID : **4410091498687**
Option 1 ID : **4410095919654**
Option 2 ID : **4410095919652**
Option 3 ID : **4410095919655**
Option 4 ID : **4410095919653**

Comprehension:

निम्नलिखित गद्यांश को ध्यानपूर्वक पढ़ें और उससे संबंधित प्रश्नों के उत्तर दें-
भारत की 85% जनता गाँवों में रहती है। भारत की सच्ची तस्वीर गाँवों में ही देखी जा सकती है। हमारे कवियों ने गाँवों के अत्यंत लुभावने चित्र खींचे हैं। किसी ने उन्हें भारत की आत्मा कहा तो किसी ने देश का हृदय-स्पंदन। भारत के गाँव प्रकृति के झूले हैं। हरे-भरे खेत, झूमती सरसों, बरसता सावन, खुली हवा, सुगंधित हवा के झोंके, निर्दोष वातावरण, प्रदूषण से मुक्त रहन-सहन, शांत-मनोरम ऋतु चक्र, कूकती कोयल, नाचते मोर, धन्य-धान्य से भरे खेत-खलिहान यह है गाँव का मनोरम सत्य। इन बातों को देखकर प्रत्येक व्यक्ति का मन गाँवों में बसने की करता है। ऐसा प्रतीत होता है मानो चारों ओर शांति और खुशहाली का साम्राज्य हो। गाँवों का सामाजिक और सांस्कृतिक जीवन भी अत्यंत मनोहारी है। यहाँ के निवासी स्वभाव से सरल-हृदय, भोले और मधुर होते हैं। यही कारण है कि वे प्रकृति की हर लय पर नाचते-गाते और गुनगुनाते हैं। होली, दीपावली, तीज आदि त्योहारों पर ग्रामवासियों की मस्ती देखने योग्य होती है। सावन की मस्ती में जब कन्याएँ झूला झूलती हुई नाच और गा पड़ती हैं तो स्वर्ग धरती पर उत्तर आता है।

SubQuestion No : 14

Q.14 **उपर्युक्त गद्यांश का उपयुक्त शीर्षक है-**

Ans
✗ 1. संचार-व्यवस्था
✗ 2. नारी शिक्षा
✓ 3. ग्रामीण जीवन
✗ 4. मँहगाई की समस्या

Question ID : **4410091498688**
Option 1 ID : **4410095919659**
Option 2 ID : **4410095919656**
Option 3 ID : **4410095919657**
Option 4 ID : **4410095919658**

QuickSarkari.com | WhatsApp Channel | Telegram: t.me/quick_sarkari

Comprehension:

निम्नलिखित गद्यांश को ध्यानपूर्वक पढ़ें और उससे संबंधित प्रश्नों के उत्तर दें-
भारत की 85% जनता गाँवों में रहती है। भारत की सच्ची तस्वीर गाँवों में ही देखी जा सकती है। हमारे कवियों ने गाँवों के अत्यंत लुभावने चित्र खींचे हैं। किसी ने उन्हें भारत की आत्मा कहा तो किसी ने देश का हृदय-स्पंदन। भारत के गाँव प्रकृति के झूले हैं। हरे-भरे खेत, झूमती सरसों, बरसता सावन, खुली हवा, सुगंधित हवा के झोंके, निर्दोष वातावरण, प्रदूषण से मुक्त रहन-सहन, शांत-मनोरम ऋतु चक्र, कूकती कोयल, नाचते मोर, धन्य-धान्य से भरे खेत-खलिहान यह है गाँव का मनोरम सत्य। इन बातों को देखकर प्रत्येक व्यक्ति का मन गाँवों में बसने की करता है। ऐसा प्रतीत होता है मानो चारों ओर शांति और खुशहाली का साम्राज्य हो। गाँवों का सामाजिक और सांस्कृतिक जीवन भी अत्यंत मनोहारी है। यहाँ के निवासी स्वभाव से सरल-हृदय, भोले और मधुर होते हैं। यही कारण है कि वे प्रकृति की हर लय पर नाचते-गाते और गुनगुनाते हैं। होली, दीपावली, तीज आदि त्योहारों पर ग्रामवासियों की मस्ती देखने योग्य होती है। सावन की मस्ती में जब कन्याएँ झूला झूलती हुई नाच और गा पड़ती हैं तो स्वर्ग धरती पर उत्तर आता है।

SubQuestion No : 15

Q.15 **'निर्दोष' का पर्यायवाची शब्द है-**

Ans
✗ 1. विहंग
✗ 2. स्वच्छ
✓ 3. बेक़सूर
✗ 4. अपराध

Question ID : **4410091498689**
Option 1 ID : **4410095919662**
Option 2 ID : **4410095919660**
Option 3 ID : **4410095919661**
Option 4 ID : **4410095919663**

Comprehension:

निम्नलिखित गद्यांश को ध्यानपूर्वक पढ़ें और उससे संबंधित प्रश्नों के उत्तर दें-
यह अहिंसा वह स्थूल वस्तु नहीं है किसी को न मारना, इतना तो है ही। मिथ्या भाषण हिंसा है। द्वेष हिंसा है। किसी का बुरा चाहना हिंसा है। जगत के लिए जो आवश्यक वस्तु है, उस पर कब्जा रखना भी हिंसा है। इतना तो सबको समझ लेना चाहिए कि अहिंसा बिना सत्य की खोज असंभव है। अहिंसा और सत्य ऐसे ओतप्रोत हैं, जैसे सिक्के के दोनों रुख या चिकनी चकती के दो पहलू। उसमें किसे उलटा कहें, किसे सीधा? फिर भी अहिंसा को साधन और सत्य की साध्य मानना चाहिए। साधन अपने हाथ की बात है। इसमें अहिंसा परम धर्म मानी गई। सत्य परमेश्वर हुआ। साधन की चिंता करते रहने पर साध्य के दर्शन किसी दिन कर ही लेंगे। इतना निश्चय करना, जग जीत लेना है। हमारे मार्ग में चाहे जो संकट आए, बाह्य दृष्टि से देखने पर हमारी चाहे जितनी हार होती दिखाई दे, तो भी हमें विश्वास न छोड़कर एक ही मंत्र अपना जपना चाहिए- सत्य है, वही है, वही एक परमेश्वर है। उसके साक्षात्कार का एक ही मार्ग
है, एक ही साधन अहिंसा है, उसे कभी न छोड़ेंगे। जिस सत्यरूप परमेश्वर के नाम पर यह प्रतिज्ञा की है, वह हमें इसके पालन का बल दे।

SubQuestion No : 16

Q.16 **उपर्युक्त गद्यांश का उपयुक्त शीर्षक है-**

Ans
✗ 1. सत्यरूप परमेश्वर
✓ 2. सत्य और अहिंसा
✗ 3. सच्चा आनंद
✗ 4. दृढ़-संकल्प

Question ID : **4410091499478**
Option 1 ID : **4410095922816**
Option 2 ID : **4410095922815**
Option 3 ID : **4410095922817**
Option 4 ID : **4410095922814**

QuickSarkari.com | WhatsApp Channel | Telegram: t.me/quick_sarkari

Comprehension:

निम्नलिखित गद्यांश को ध्यानपूर्वक पढ़ें और उससे संबंधित प्रश्नों के उत्तर दें-
यह अहिंसा वह स्थूल वस्तु नहीं है किसी को न मारना, इतना तो है ही। मिथ्या भाषण हिंसा है। द्वेष हिंसा है। किसी का बुरा चाहना हिंसा है। जगत के लिए जो आवश्यक वस्तु है, उस पर कब्जा रखना भी हिंसा है। इतना तो सबको समझ लेना चाहिए कि अहिंसा बिना सत्य की खोज असंभव है। अहिंसा और सत्य ऐसे ओतप्रोत हैं, जैसे सिक्के के दोनों रुख या चिकनी चकती के दो पहलू। उसमें किसे उलटा कहें, किसे सीधा? फिर भी अहिंसा को साधन और सत्य की साध्य मानना चाहिए। साधन अपने हाथ की बात है। इसमें अहिंसा परम धर्म मानी गई। सत्य परमेश्वर हुआ। साधन की चिंता करते रहने पर साध्य के दर्शन किसी दिन कर ही लेंगे। इतना निश्चय करना, जग जीत लेना है। हमारे मार्ग में चाहे जो संकट आए, बाह्य दृष्टि से देखने पर हमारी चाहे जितनी हार होती दिखाई दे, तो भी हमें विश्वास न छोड़कर एक ही मंत्र अपना जपना चाहिए- सत्य है, वही है, वही एक परमेश्वर है। उसके साक्षात्कार का एक ही मार्ग
है, एक ही साधन अहिंसा है, उसे कभी न छोड़ेंगे। जिस सत्यरूप परमेश्वर के नाम पर यह प्रतिज्ञा की है, वह हमें इसके पालन का बल दे।

SubQuestion No : 17

Q.17 **निम्नलिखित में कौन-सी बात में हिंसा नहीं है?**

Ans
✔ 1. सत्य की खोज
✘ 2. किसी का बुरा चाहना
✘ 3. मिथ्या भाषण
✘ 4. द्वेष

Question ID : **4410091499479**
Option 1 ID : **4410095922821**
Option 2 ID : **4410095922818**
Option 3 ID : **4410095922819**
Option 4 ID : **4410095922820**

Comprehension:

निम्नलिखित गद्यांश को ध्यानपूर्वक पढ़ें और उससे संबंधित प्रश्नों के उत्तर दें-
यह अहिंसा वह स्थूल वस्तु नहीं है किसी को न मारना, इतना तो है ही। मिथ्या भाषण हिंसा है। द्वेष हिंसा है। किसी का बुरा चाहना हिंसा है। जगत के लिए जो आवश्यक वस्तु है, उस पर कब्जा रखना भी हिंसा है। इतना तो सबको समझ लेना चाहिए कि अहिंसा बिना सत्य की खोज असंभव है। अहिंसा और सत्य ऐसे ओतप्रोत हैं, जैसे सिक्के के दोनों रुख या चिकनी चकती के दो पहलू। उसमें किसे उलटा कहें, किसे सीधा? फिर भी अहिंसा को साधन और सत्य की साध्य मानना चाहिए। साधन अपने हाथ की बात है। इसमें अहिंसा परम धर्म मानी गई। सत्य परमेश्वर हुआ। साधन की चिंता करते रहने पर साध्य के दर्शन किसी दिन कर ही लेंगे। इतना निश्चय करना, जग जीत लेना है। हमारे मार्ग में चाहे जो संकट आए, बाह्य दृष्टि से देखने पर हमारी चाहे जितनी हार होती दिखाई दे, तो भी हमें विश्वास न छोड़कर एक ही मंत्र अपना जपना चाहिए- सत्य है, वही है, वही एक परमेश्वर है। उसके साक्षात्कार का एक ही मार्ग
है, एक ही साधन अहिंसा है, उसे कभी न छोड़ेंगे। जिस सत्यरूप परमेश्वर के नाम पर यह प्रतिज्ञा की है, वह हमें इसके पालन का बल दे।

SubQuestion No : 18

Q.18 **सत्य की खोज असंभव है-**

Ans
✔ 1. अहिंसा के बिना
✘ 2. चरित्र के बिना
✘ 3. विद्या के बिना
✘ 4. प्रतिज्ञा के बिना

Question ID : **4410091499480**
Option 1 ID : **4410095922824**
Option 2 ID : **4410095922822**
Option 3 ID : **4410095922823**
Option 4 ID : **4410095922825**

Comprehension:

निम्नलिखित गद्यांश को ध्यानपूर्वक पढ़ें और उससे संबंधित प्रश्नों के उत्तर दें-
यह अहिंसा वह स्थूल वस्तु नहीं है किसी को न मारना, इतना तो है ही। मिथ्या भाषण हिंसा है। द्वेष हिंसा है। किसी का बुरा चाहना हिंसा है। जगत के लिए जो आवश्यक वस्तु है, उस पर कब्जा रखना भी हिंसा है। इतना तो सबको समझ लेना चाहिए कि अहिंसा बिना सत्य की खोज असंभव है। अहिंसा और सत्य ऐसे ओतप्रोत हैं, जैसे सिक्के के दोनों रुख या चिकनी चकती के दो पहलू। उसमें किसे उलटा कहें, किसे सीधा? फिर भी अहिंसा को साधन और सत्य की साध्य मानना चाहिए। साधन अपने हाथ की बात है। इसमें अहिंसा परम धर्म मानी गई। सत्य परमेश्वर हुआ। साधन की चिंता करते रहने पर साध्य के दर्शन किसी दिन कर ही लेंगे। इतना निश्चय करना, जग जीत लेना है। हमारे मार्ग में चाहे जो संकट आए, बाह्य दृष्टि से देखने पर हमारी चाहे जितनी हार होती दिखाई दे, तो भी हमें विश्वास न छोड़कर एक ही मंत्र अपना जपना चाहिए- सत्य है, वही है, वही एक परमेश्वर है। उसके साक्षात्कार का एक ही मार्ग
है, एक ही साधन अहिंसा है, उसे कभी न छोड़ेंगे। जिस सत्यरूप परमेश्वर के नाम पर यह प्रतिज्ञा की है, वह हमें इसके पालन का बल दे।

SubQuestion No : 19

Q.19 **'परमेश्वर' का पर्यायवाची है-**

Ans
✗ 1. संसार
✓ 2. ईश्वर
✗ 3. भूदेव
✗ 4. ब्राह्मण

Question ID : **4410091499481**
Option 1 ID : **4410095922829**
Option 2 ID : **4410095922826**
Option 3 ID : **4410095922827**
Option 4 ID : **4410095922828**

Comprehension:

निम्नलिखित गद्यांश को ध्यानपूर्वक पढ़ें और उससे संबंधित प्रश्नों के उत्तर दें-
यह अहिंसा वह स्थूल वस्तु नहीं है किसी को न मारना, इतना तो है ही। मिथ्या भाषण हिंसा है। द्वेष हिंसा है। किसी का बुरा चाहना हिंसा है। जगत के लिए जो आवश्यक वस्तु है, उस पर कब्जा रखना भी हिंसा है। इतना तो सबको समझ लेना चाहिए कि अहिंसा बिना सत्य की खोज असंभव है। अहिंसा और सत्य ऐसे ओतप्रोत हैं, जैसे सिक्के के दोनों रुख या चिकनी चकती के दो पहलू। उसमें किसे उलटा कहें, किसे सीधा? फिर भी अहिंसा को साधन और सत्य की साध्य मानना चाहिए। साधन अपने हाथ की बात है। इसमें अहिंसा परम धर्म मानी गई। सत्य परमेश्वर हुआ। साधन की चिंता करते रहने पर साध्य के दर्शन किसी दिन कर ही लेंगे। इतना निश्चय करना, जग जीत लेना है। हमारे मार्ग में चाहे जो संकट आए, बाह्य दृष्टि से देखने पर हमारी चाहे जितनी हार होती दिखाई दे, तो भी हमें विश्वास न छोड़कर एक ही मंत्र अपना जपना चाहिए- सत्य है, वही है, वही एक परमेश्वर है। उसके साक्षात्कार का एक ही मार्ग
है, एक ही साधन अहिंसा है, उसे कभी न छोड़ेंगे। जिस सत्यरूप परमेश्वर के नाम पर यह प्रतिज्ञा की है, वह हमें इसके पालन का बल दे।

SubQuestion No : 20

Q.20 **'अहिंसा' का विलोम है-**

Ans
✗ 1. स्थूल
✗ 2. स्तुति
✗ 3. सुमति
✓ 4. हिंसा

Question ID : **4410091499482**
Option 1 ID : **4410095922831**
Option 2 ID : **4410095922833**
Option 3 ID : **4410095922830**
Option 4 ID : **4410095922832**

Quick Sarkari

Thank you for studying with QuickSarkari!

Get the latest Sarkari Naukri notifications, admit cards, results, answer keys and free previous-year papers first - follow us on WhatsApp and Telegram.

Visit www.quicksarkari.com

Join our WhatsApp Channel

https://whatsapp.com/channel/0029VaxxbrREquiPoXTWM229

Join our Telegram Channel

https://t.me/quick_sarkari

Share this PDF with your friends preparing for DSSSB exams.