DSSSB PREVIOUS YEAR PAPER WITH ANSWER KEY

DSSSB Naib Tehsildar

28 February 2026 · Shift 1

डीएसएसएसबी नायब तहसीलदार – 28 फरवरी 2026, शिफ्ट 1 का प्रश्न पत्र, उत्तर कुंजी सहित

200	120 min	1 / −0.25	EN + HI
Questions / प्रश्न	Duration / समय	Marks per Q / अंक	Language / भाषा

Sections: General Awareness, General intelligence and Reasoning Ability, Arithmetical and Numerical Ability, Hindi Language and Comprehension, English Language and Comprehension

INSIDE THIS PDF / इस PDF में

Question Paper in English + Hindi with Answer Key (correct option marked in green) + answer table — Page 2–54
प्रश्न पत्र अंग्रेज़ी + हिंदी में, उत्तर कुंजी सहित (सही विकल्प हरे रंग में) + उत्तर तालिका

Official DSSSB Response Sheet with Answer Key (correct option ticked in green) — Page 55–129
आधिकारिक DSSSB रिस्पॉन्स शीट, उत्तर कुंजी सहित (सही विकल्प हरे टिक से)

HOW TO USE THIS PAPER / इस पेपर का उपयोग कैसे करें

1. Attempt the paper first as a timed online mock test (link below).
   पहले नीचे दिए लिंक से इसे टाइमर के साथ ऑनलाइन मॉक टेस्ट के रूप में हल करें।
2. Check your score, section-wise analysis and solutions online.
   ऑनलाइन अपना स्कोर, खंड-वार विश्लेषण और हल देखें।
3. Use this PDF for revision. Correct answers are shown in green.
   दोहराने के लिए इस PDF का उपयोग करें। सही उत्तर हरे रंग में दिए गए हैं।

Attempt this paper as a FREE online mock test
इस पेपर को फ्री ऑनलाइन मॉक टेस्ट के रूप में हल करें – टाइमर, स्कोर और हल के साथ
https://quicksarkari.com/dsssb-naib-tehsildar-28-february-2026-shift-1-mock-test/

All DSSSB Naib Tehsildar papers and mock tests: **quicksarkari.com/dsssb-mock-test/#naib-tehsildar**

Join WhatsApp Channel | Join Telegram Channel

DSSSB Naib Tehsildar – Question Paper (English + Hindi)

DSSSB नायब तहसीलदार – प्रश्न पत्र (अंग्रेज़ी + हिंदी)

Exam held on 28 February 2026, Shift 1 · 200 questions · correct answers marked ✔ in green
परीक्षा तिथि 28 फरवरी 2026, शिफ्ट 1 · 200 प्रश्न · सही उत्तर हरे रंग में ✔ से चिह्नित

> The official paper for this shift was in English. The Hindi version of each question is a translation prepared by QuickSarkari; the language-section questions are shown as asked.
> इस शिफ्ट का आधिकारिक प्रश्न पत्र अंग्रेज़ी में था। प्रत्येक प्रश्न का हिंदी संस्करण QuickSarkari द्वारा तैयार किया गया अनुवाद है; भाषा खंड के प्रश्न मूल रूप में दिए गए हैं।

General Awareness

Q.1 Who co-founded the Theosophical Society and moved its headquarters to Adyar (Madras) in 1882?
थियोसोफिकल सोसाइटी की सह-स्थापना किसने की और 1882 में इसका मुख्यालय अड्यार (मद्रास) में स्थानांतरित किया?

(1) H. P. Blavatsky & H. S. Olcott / एच. पी. ब्लावात्स्की और एच. एस. ओल्कॉट ✔
(2) A. O. Hume / ए. ओ. ह्यूम
(3) W. C. Bonnerjee / डब्ल्यू. सी. बनर्जी
(4) Annie Besant / एनी बेसेंट

Q.2 In October 2025, which of the following ministries notified the Information Technology (Intermediary Guidelines and Digital Media Ethics Code) Amendment Rules, 2025, to amend the Information Technology (Intermediary Guidelines and Digital Media Ethics Code) Rules, 2021, with the aim to tighten standards for intermediaries and digital platforms regarding “unlawful content”?
अक्टूबर 2025 में, निम्नलिखित में से किस मंत्रालय ने "गैरकानूनी सामग्री" के संबंध में मध्यवर्तियों और डिजिटल प्लेटफार्मों के लिए मानकों को सख्त करने के उद्देश्य से सूचना प्रौद्योगिकी (मध्यवर्ती दिशानिर्देश और डिजिटल मीडिया आचार संहिता) नियम, 2021 में संशोधन करने हेतु सूचना प्रौद्योगिकी (मध्यवर्ती दिशानिर्देश और डिजिटल मीडिया आचार संहिता) संशोधन नियम, 2025 को अधिसूचित किया?

(1) Ministry of Statistics and Programme Implementation / सांख्यिकी और कार्यक्रम कार्यान्वयन मंत्रालय
(2) Ministry of Communications / संचार मंत्रालय
(3) Ministry of Information and Broadcasting / सूचना और प्रसारण मंत्रालय
(4) Ministry of Electronics & Information Technology / इलेक्ट्रॉनिकी और सूचना प्रौद्योगिकी मंत्रालय ✔

Q.3 Which of the following countries hosted the UEFA Women's Euro 2025 football tournament in July 2025?
निम्नलिखित में से किस देश ने जुलाई 2025 में UEFA महिला यूरो 2025 फुटबॉल टूर्नामेंट की मेजबानी की?

(1) Switzerland / स्विट्ज़रलैंड ✔
(2) England / इंग्लैंड
(3) Germany / जर्मनी
(4) France / फ्रांस

Q.4 Which mission, unveiled on 15 August 2025, was launched to strengthen India’s multi-layer and indigenous air-defence system?
15 अगस्त 2025 को अनावरण किया गया कौन-सा मिशन भारत की बहुस्तरीय और स्वदेशी वायु-रक्षा प्रणाली को सुदृढ़ करने के लिए शुरू किया गया था?

(1) Mission Sudarshan Chakra / मिशन सुदर्शन चक्र ✔
(2) Mission Garuda Net / मिशन गरुड़ नेट
(3) Mission Akash Prime / मिशन आकाश प्राइम
(4) Mission Brahmastra Air Defence / मिशन ब्रह्मास्त्र एयर डिफेंस

Q.5 Which of the following is NOT a recognised health system under AAYUSH?

निम्नलिखित में से कौन-सी आयुष (AAYUSH) के अंतर्गत मान्यता प्राप्त स्वास्थ्य प्रणाली नहीं है?

(1) Homeopathy / होम्योपैथी

(2) Unani / यूनानी

(3) Yoga / योग

(4) **Saatwik / सात्विक ✔**

Q.6 Which veteran actor premiered his directorial venture, Tanvi the Great, at the Cannes Film Festival 2025?

किस अनुभवी अभिनेता ने अपने निर्देशन में बनी फिल्म 'तन्वी द ग्रेट' का प्रीमियर कान फिल्म महोत्सव 2025 में किया?

(1) **Anupam Kher / अनुपम खेर ✔**

(2) Kamal Haasan / कमल हासन

(3) Ajay Devgn / अजय देवगन

(4) Kay Kay Menon / के के मेनन

Q.7 According to the revised norms of assistance to National Sports Federations (NSFs) from May 2025, what is the updated daily diet allowance for senior athletes?

मई 2025 से राष्ट्रीय खेल महासंघों (NSFs) को सहायता के संशोधित मानदंडों के अनुसार, वरिष्ठ खिलाड़ियों के लिए अद्यतन दैनिक आहार भत्ता कितना है?

(1) **₹1,000 ✔**

(2) ₹690

(3) ₹850

(4) ₹750

Q.8 Where did DRDO conduct maiden flight-tests of the Integrated Air Defence Weapon System on August 23, 2025?

DRDO ने 23 अगस्त, 2025 को एकीकृत वायु रक्षा हथियार प्रणाली (Integrated Air Defence Weapon System) के प्रथम उड़ान-परीक्षण कहाँ किए?

(1) Coast of Maharashtra / महाराष्ट्र के तट पर

(2) Coast of Tamil Nadu / तमिलनाडु के तट पर

(3) **Coast of Odisha / ओडिशा के तट पर ✔**

(4) Coast of Gujarat / गुजरात के तट पर

Q.9 Who among the following is the Chairperson of the Microfinance Institutions Network (MFIN) India as of the end of July 2025?

जुलाई 2025 के अंत तक की स्थिति के अनुसार, निम्नलिखित में से कौन माइक्रोफाइनेंस इंस्टीट्यूशंस नेटवर्क (MFIN) इंडिया के अध्यक्ष हैं?

(1) **Vineet Chattree / विनीत छत्री ✔**

(2) Rakesh Dubey / राकेश दुबे

(3) Vijay Mahajan / विजय महाजन

(4) Samit Ghosh / समित घोष

Q.10 The eleventh edition of the Joint Military Exercise 'MITRA SHAKTI-2025' between India and Sri Lanka was held at which of the following places in November 2025?

भारत और श्रीलंका के बीच संयुक्त सैन्य अभ्यास 'मित्र शक्ति-2025' (MITRA SHAKTI-2025) का ग्यारहवाँ संस्करण नवंबर 2025 में निम्नलिखित में से किस स्थान पर आयोजित किया गया?

(1) Belagavi / बेलगावी ✔
(2) Pune / पुणे
(3) Hyderabad / हैदराबाद
(4) Coimbatore / कोयंबटूर

Q.11 The Vellore Mutiny happened in which year?

वेल्लोर विद्रोह किस वर्ष हुआ था?

(1) 1800
(2) 1840
(3) 1806 ✔
(4) 1851

Q.12 In May 2025, which of the following states of India has announced the establishment of the India's first "Quantum Valley Tech Park"?

मई 2025 में, भारत के निम्नलिखित में से किस राज्य ने भारत के पहले "क्वांटम वैली टेक पार्क" की स्थापना की घोषणा की है?

(1) Karnataka / कर्नाटक
(2) Andhra Pradesh / आंध्र प्रदेश ✔
(3) Tamil Nadu / तमिलनाडु
(4) Maharashtra / महाराष्ट्र

Q.13 Who inaugurated the first-ever World Audio Visual and Entertainment Summit (WAVES) 2025 in Mumbai, Maharashtra, on May 1, 2025?

1 मई, 2025 को मुंबई, महाराष्ट्र में पहले विश्व दृश्य-श्रव्य और मनोरंजन शिखर सम्मेलन (WAVES) 2025 का उद्घाटन किसने किया?

(1) Nitin Gadkari / नितिन गडकरी
(2) Ashwini Vaishnaw / अश्विनी वैष्णव
(3) Piyush Goyal / पीयूष गोयल
(4) Narendra Modi / नरेंद्र मोदी ✔

Q.14 Who built the Brihadeeswara Temple at Thanjavur?

तंजावुर में बृहदेश्वर मंदिर का निर्माण किसने करवाया था?

(1) Rajendra / राजेंद्र
(2) Parantaka / परांतक
(3) Kulottunga I / कुलोत्तुंग प्रथम
(4) Rajaraja I / राजराज प्रथम ✔

Q.15 The Technology Mission on Oilseeds was started in India in the year:

भारत में तिलहन प्रौद्योगिकी मिशन किस वर्ष शुरू किया गया था?

(1) 1975
(2) 1980
(3) 1986 ✔
(4) 1992

Q.16 Which of the following challenges did India face in implementing privatisation during the initial phase?
प्रारंभिक चरण के दौरान निजीकरण को लागू करने में भारत को निम्नलिखित में से किस चुनौती का सामना करना पड़ा?

(1) Lack of private sector interest / निजी क्षेत्र की रुचि का अभाव
(2) Inadequate regulatory framework / अपर्याप्त नियामक ढाँचा
(3) **Opposition from trade unions and political parties / ट्रेड यूनियनों और राजनीतिक दलों का विरोध ✔**
(4) Excessive government control over the industries / उद्योगों पर अत्यधिक सरकारी नियंत्रण

Q.17 From which location did ISRO launch the NISAR satellite using GSLV-F16 in July 2025?
जुलाई 2025 में ISRO ने GSLV-F16 का उपयोग करके NISAR उपग्रह को किस स्थान से प्रक्षेपित किया?

(1) Udhampur Launch Complex, Jammu & Kashmir / उधमपुर प्रक्षेपण परिसर, जम्मू और कश्मीर
(2) **Satish Dhawan Space Centre (SDSC), Sriharikota / सतीश धवन अंतरिक्ष केंद्र (SDSC), श्रीहरिकोटा ✔**
(3) Thumba Equatorial Rocket Launching Station, Thiruvananthapuram / थुंबा भूमध्यरेखीय रॉकेट प्रक्षेपण केंद्र, तिरुवनंतपुरम
(4) Vikram Sarabhai Space Centre, Thiruvananthapuram / विक्रम साराभाई अंतरिक्ष केंद्र, तिरुवनंतपुरम

Q.18 The 26th Asian Athletics Championships took place in May 2025 in which city?
26वीं एशियाई एथलेटिक्स चैंपियनशिप मई 2025 में किस शहर में आयोजित हुई?

(1) Seoul / सियोल
(2) **Gumi / गुमी ✔**
(3) Daegu / डेगू
(4) Busan / बुसान

Q.19 Which major administrative change followed the Revolt of 1857?
1857 के विद्रोह के बाद कौन-सा प्रमुख प्रशासनिक परिवर्तन हुआ?

(1) **Transfer of power to the British Crown / ब्रिटिश क्राउन को सत्ता का हस्तांतरण ✔**
(2) Introduction of the Ryotwari System / रैयतवाड़ी व्यवस्था की शुरुआत
(3) Partition of Bengal / बंगाल का विभाजन
(4) Establishment of Indian National Congress / भारतीय राष्ट्रीय कांग्रेस की स्थापना

Q.20 The Rashtrakutas ruled from which region?
राष्ट्रकूटों ने किस क्षेत्र से शासन किया?

(1) Punjab / पंजाब
(2) Bengal / बंगाल
(3) **Deccan / दक्कन ✔**
(4) Gujarat / गुजरात

Q.21 Who among the following was the leader of the 1857 Revolt in Lucknow?
निम्नलिखित में से कौन लखनऊ में 1857 के विद्रोह का नेता था?

(1) Kunwar Singh / कुँवर सिंह
(2) **Begum Hazrat Mahal / बेगम हज़रत महल ✔**
(3) Tantia Tope / तात्या टोपे
(4) Nana Saheb / नाना साहब

Q.22 What primarily causes the seasonal reversal of winds in India?

भारत में पवनों के मौसमी उत्क्रमण का मुख्य कारण क्या है?

(1) Jet streams / जेट धाराएँ

(2) Differential heating of land and sea / स्थल और समुद्र का विभेदी तापन ✔

(3) Coriolis effect / कोरिओलिस प्रभाव

(4) Ocean currents / महासागरीय धाराएँ

Q.23 Which of the following combinations correctly matches the Constitutional Article with the corresponding provision on citizenship under Part II of the Constitution of India?

निम्नलिखित में से कौन-सा संयोजन भारतीय संविधान के भाग II के अंतर्गत नागरिकता संबंधी संगत प्रावधान के साथ संवैधानिक अनुच्छेद का सही मिलान करता है?

(1) Article 7 – Migrants from Pakistan to India / अनुच्छेद 7 – पाकिस्तान से भारत आए प्रवासी

(2) Article 8 – Persons of Indian origin living abroad / अनुच्छेद 8 – विदेश में रहने वाले भारतीय मूल के व्यक्ति ✔

(3) Article 5 – Citizenship by birth abroad / अनुच्छेद 5 – विदेश में जन्म द्वारा नागरिकता

(4) Article 9 – Citizenship by services to the government / अनुच्छेद 9 – सरकार को सेवाओं द्वारा नागरिकता

Q.24 The reservation of seats for Scheduled Castes and Scheduled Tribes in the Lok Sabha is provided under which article?

लोकसभा में अनुसूचित जातियों और अनुसूचित जनजातियों के लिए सीटों का आरक्षण किस अनुच्छेद के अंतर्गत प्रदान किया गया है?

(1) Article 335 / अनुच्छेद 335

(2) Article 332 / अनुच्छेद 332

(3) Article 330 / अनुच्छेद 330 ✔

(4) Article 338 / अनुच्छेद 338

Q.25 Under which Article of the Constitution of India are the effects of a Proclamation of National Emergency clearly defined?

भारतीय संविधान के किस अनुच्छेद के अंतर्गत राष्ट्रीय आपातकाल की उद्घोषणा के प्रभावों को स्पष्ट रूप से परिभाषित किया गया है?

(1) Article 354 / अनुच्छेद 354

(2) Article 353 / अनुच्छेद 353 ✔

(3) Article 352 / अनुच्छेद 352

(4) Article 355 / अनुच्छेद 355

Q.26 The right to form associations or unions under Article 19 of the Indian Constitution does NOT include which of the following?

भारतीय संविधान के अनुच्छेद 19 के अंतर्गत संगम या संघ बनाने के अधिकार में निम्नलिखित में से क्या शामिल नहीं है?

(1) The right to form political parties / राजनीतिक दल बनाने का अधिकार

(2) The right to strike as a fundamental right / मौलिक अधिकार के रूप में हड़ताल करने का अधिकार ✔

(3) The right to form trade unions / ट्रेड यूनियन बनाने का अधिकार

(4) The right to form cooperative societies / सहकारी समितियाँ बनाने का अधिकार

Q.27 Each organised skeletal muscle in our body is made up of a number of muscle bundles or fascicles held together by a common collagenous connective tissue layer called:
हमारे शरीर की प्रत्येक संगठित कंकाल पेशी कई पेशी बंडलों या पूलिकाओं (फैसिकल्स) से बनी होती है, जो एक सामान्य कोलेजनी संयोजी ऊतक की परत द्वारा एक साथ जुड़ी रहती हैं, जिसे कहा जाता है:

(1) plasma membrane / प्लाज्मा झिल्ली
(2) muscle fibre / पेशी तंतु
(3) **fascia / प्रावरणी (फेशिया) ✔**
(4) sarcolemma / सार्कोलेमा

Q.28 The establishment of the National Commission for Scheduled Castes (NCSC) under the Constitution of India is provided in _____.
भारतीय संविधान के अंतर्गत राष्ट्रीय अनुसूचित जाति आयोग (NCSC) की स्थापना का प्रावधान _____ में किया गया है।

(1) Article 341 / अनुच्छेद 341
(2) **Article 338 / अनुच्छेद 338 ✔**
(3) Article 340 / अनुच्छेद 340
(4) Article 339 / अनुच्छेद 339

Q.29 Which of the following is NOT a Vedanga?
निम्नलिखित में से कौन-सा वेदांग नहीं है?

(1) Nirukta / निरुक्त
(2) **Kathasaritsagara / कथासरित्सागर ✔**
(3) Jyotisha / ज्योतिष
(4) Vyakarana / व्याकरण

Q.30 Which of the following statements is INCORRECT about C4 plants?
C4 पौधों के बारे में निम्नलिखित में से कौन-सा कथन गलत है?

(1) **Calvin pathway occurs in all the mesophyll cells of the C4 plants. / C4 पौधों की सभी पर्णमध्योतक (मीसोफिल) कोशिकाओं में केल्विन पथ होता है। ✔**
(2) Maize and sorghum are C4 plants. / मक्का और ज्वार C4 पौधे हैं।
(3) The bundle sheath cells may form several layers around the vascular bundles. / पूलाच्छद (बंडल शीथ) कोशिकाएँ संवहन बंडलों के चारों ओर कई परतें बना सकती हैं।
(4) The leaves of C4 plants have Kranz' anatomy. / C4 पौधों की पत्तियों में क्रैंज़ (Kranz) शारीरिकी होती है।

Q.31 Which of the following groups in the modern periodic table contains the metal sodium?
आधुनिक आवर्त सारणी में निम्नलिखित में से किस समूह में धातु सोडियम है?

(1) **Group 1 / समूह 1 ✔**
(2) Group 2 / समूह 2
(3) Group 13 / समूह 13
(4) Group 14 / समूह 14

Q.32 The Indian Desert mainly extends over which of the following Indian states?
भारतीय मरुस्थल मुख्य रूप से निम्नलिखित में से किन भारतीय राज्यों में विस्तृत है?

(1) Madhya Pradesh and Maharashtra / मध्य प्रदेश और महाराष्ट्र
(2) **Gujarat and Rajasthan / गुजरात और राजस्थान ✔**
(3) Uttar Pradesh and Bihar / उत्तर प्रदेश और बिहार
(4) Punjab and Himachal Pradesh / पंजाब और हिमाचल प्रदेश

Q.33 The Onge tribes of Andaman Islands are a part of which of the following racial stock?
अंडमान द्वीप समूह की ओंगे जनजातियाँ निम्नलिखित में से किस प्रजातीय समूह का भाग हैं?

(1) Negrito / नीग्रिटो ✔
(2) Austroasiatic / ऑस्ट्रो-एशियाटिक
(3) Dravidian / द्रविड़
(4) Mongoloid / मंगोलॉयड

Q.34 According to the Census 2011, which Union Territory has the highest number of in-migrants?
जनगणना 2011 के अनुसार, किस केंद्रशासित प्रदेश में आप्रवासियों (इन-माइग्रेंट्स) की संख्या सर्वाधिक है?

(1) Lakshadweep / लक्षद्वीप
(2) Delhi / दिल्ली ✔
(3) Chandigarh / चंडीगढ़
(4) Daman and Diu / दमन और दीव

Q.35 Which Constitutional Amendment extended the reservation of seats for Scheduled Castes (SCs) and Scheduled Tribes (STs) in the Parliament and State Assemblies while discontinuing the reserved seats for Anglo-Indians?
किस संविधान संशोधन ने संसद और राज्य विधानसभाओं में अनुसूचित जातियों (SCs) और अनुसूचित जनजातियों (STs) के लिए सीटों के आरक्षण को बढ़ाया, जबकि आंग्ल-भारतीयों के लिए आरक्षित सीटों को समाप्त कर दिया?

(1) 104th Amendment Act / 104वाँ संशोधन अधिनियम ✔
(2) 100th Amendment Act / 100वाँ संशोधन अधिनियम
(3) 102nd Amendment Act / 102वाँ संशोधन अधिनियम
(4) 101st Amendment Act / 101वाँ संशोधन अधिनियम

Q.36 The Lomas Rishi cave is located in which of the following states?
लोमस ऋषि गुफा निम्नलिखित में से किस राज्य में स्थित है?

(1) Odisha / ओडिशा
(2) Maharashtra / महाराष्ट्र
(3) Karnataka / कर्नाटक
(4) Bihar / बिहार ✔

Q.37 Which of the following Buddhist canonical literatures contains the monastic rules of the order of Buddhist monks?
निम्नलिखित में से किस बौद्ध धार्मिक ग्रंथ में बौद्ध भिक्षुओं के संघ के मठीय नियम दिए गए हैं?

(1) Sutta Pitaka / सुत्त पिटक
(2) Vinaya Pitaka / विनय पिटक ✔
(3) Jataka Katha / जातक कथा
(4) Abhidhamma Pitaka / अभिधम्म पिटक

Q.38 Which coastal plain of India is broader and more gently sloping?
भारत का कौन-सा तटीय मैदान अधिक चौड़ा और अधिक मंद ढाल वाला है?

(1) Malabar Coast / मालाबार तट
(2) Konkan Coast / कोंकण तट
(3) Eastern Coastal Plain / पूर्वी तटीय मैदान ✔
(4) Western Coastal Plain / पश्चिमी तटीय मैदान

Q.39 Which ocean lies to the south of India?

भारत के दक्षिण में कौन-सा महासागर स्थित है?

(1) Pacific Ocean / प्रशांत महासागर

(2) Southern Ocean / दक्षिणी महासागर

(3) Indian Ocean / हिंद महासागर ✔

(4) Atlantic Ocean / अटलांटिक महासागर

Q.40 Which of the following bodies facilitates coordination between the Centre and States on common policy matters?

निम्नलिखित में से कौन-सा निकाय साझा नीतिगत मामलों पर केंद्र और राज्यों के बीच समन्वय को सुगम बनाता है?

(1) Inter-State Council / अंतर-राज्य परिषद ✔

(2) Planning Commission / योजना आयोग

(3) NITI Aayog Governing Council / नीति आयोग शासी परिषद

(4) Zonal Councils / क्षेत्रीय परिषदें

General intelligence and Reasoning Ability

Q.41 Refer to the following letter and symbol series and answer the question that follows. Counting to be done from left to right only.

(Left) S # ^ D R G * Y W @ E % P V & X Z A $ C Ω Q σ (Right)

How many such symbols are there, each of which is immediately preceded by a letter and also immediately followed by a symbol?

निम्नलिखित अक्षर और प्रतीक श्रृंखला को देखें और नीचे दिए गए प्रश्न का उत्तर दें। गिनती केवल बाएँ से दाएँ की जानी है।

(बाएँ) S # ^ D R G * Y W @ E % P V & X Z A $ C Ω Q σ (दाएँ)

ऐसे कितने प्रतीक हैं, जिनमें से प्रत्येक के ठीक पहले एक अक्षर है और ठीक बाद भी एक प्रतीक है?

(1) None / कोई नहीं

(2) Three / तीन

(3) Two / दो

(4) One / एक ✔

Q.42 In a certain code language, 'A ! B' means 'A is the brother of B', 'A % B' means 'A is the father of B', 'A ÷ B' means 'A is the son of B' and 'A € B' means 'A is the wife of B'.

Based on the above, how is D related to X if 'D ÷ E % V ! W € X'?

एक निश्चित कूट भाषा में, 'A ! B' का अर्थ है 'A, B का भाई है', 'A % B' का अर्थ है 'A, B का पिता है', 'A ÷ B' का अर्थ है 'A, B का पुत्र है' और 'A € B' का अर्थ है 'A, B की पत्नी है'।

उपर्युक्त के आधार पर, यदि 'D ÷ E % V ! W € X' है, तो D का X से क्या संबंध है?

(1) Brother / भाई

(2) Wife's brother / पत्नी का भाई ✔

(3) Father / पिता

(4) Mother's brother / मामा

Q.43 In a certain code language, A + B means 'A is the husband of B'
A - B means 'A is the sister of B'
A × B means 'A is the mother of B'
A ÷ B means 'A is the brother of B'
Based on the above, how is Q related to P if 'Q - R + S × T ÷ P'?
एक निश्चित कूट भाषा में, A + B का अर्थ है 'A, B का पति है'
A - B का अर्थ है 'A, B की बहन है'
A × B का अर्थ है 'A, B की माता है'
A ÷ B का अर्थ है 'A, B का भाई है'
उपर्युक्त के आधार पर, यदि 'Q - R + S × T ÷ P' है, तो Q का P से क्या संबंध है?

(1) Father's sister / पिता की बहन ✔
(2) Daughter / पुत्री
(3) Mother's sister / माता की बहन
(4) Husband's sister / पति की बहन

Q.44 Each of B, A, R, C, O, D and E has an exam on a different day of a week, starting from Monday and ending on Sunday of the same week. B has exam on Thursday.
D has exam on one of the days after C and on one of the days before A. R has exam on one of the days after O but on one of the days before E. O has exam on one of the days after B. How many people have exam between R and D?
B, A, R, C, O, D और E में से प्रत्येक की परीक्षा एक ही सप्ताह के अलग-अलग दिन है, जो सोमवार से शुरू होकर उसी सप्ताह के रविवार को समाप्त होता है। B की परीक्षा गुरुवार को है।
D की परीक्षा C के बाद के दिनों में से किसी एक दिन और A से पहले के दिनों में से किसी एक दिन है। R की परीक्षा O के बाद के दिनों में से किसी एक दिन लेकिन E से पहले के दिनों में से किसी एक दिन है। O की परीक्षा B के बाद के दिनों में से किसी एक दिन है। R और D के बीच कितने लोगों की परीक्षा है?

(1) Two / दो
(2) Three / तीन ✔
(3) Four / चार
(4) One / एक

Q.45 Select the pair which follows the same pattern as that followed by the two pairs given below. Both pairs follow the same pattern.
GIK : JLN PRT : SUW
उस युग्म का चयन करें जो उसी पैटर्न का अनुसरण करता है जिसका अनुसरण नीचे दिए गए दो युग्मों द्वारा किया गया है। दोनों युग्म एक ही पैटर्न का अनुसरण करते हैं।
GIK : JLN PRT : SUW

(1) EGI : HJL ✔
(2) EHI : KLO
(3) QSW : UVY
(4) NRV : STW

Q.46 Refer to the following number and symbol series and answer the question that follows. Counting to be done from left to right only. All numbers are single-digit numbers only.
(Left) ^ 3 # 8 < & > 3 & % 9 & 3 > * 9 9 < 2 4 1 (Right)
How many such symbols are there, each of which is immediately preceded by a symbol and also immediately followed by a number?

निम्नलिखित संख्या और प्रतीक श्रृंखला को देखें और नीचे दिए गए प्रश्न का उत्तर दें। गिनती केवल बाएँ से दाएँ की जानी है। सभी संख्याएँ केवल एक-अंकीय संख्याएँ हैं।
(बाएँ) ^ 3 # 8 < & > 3 & % 9 & 3 > * 9 9 < 2 4 1 (दाएँ)
ऐसे कितने प्रतीक हैं, जिनमें से प्रत्येक के ठीक पहले एक प्रतीक है और ठीक बाद एक संख्या है?

(1) One / एक
(2) **More than two / दो से अधिक ✔**
(3) Two / दो
(4) None / कोई नहीं

Q.47 In a certain code language, 'SOAR' is coded as '6879' and 'ROAD' is coded as '7681'. What is the code for 'D' in the given code language?

एक निश्चित कूट भाषा में, 'SOAR' को '6879' लिखा जाता है और 'ROAD' को '7681' लिखा जाता है। उस कूट भाषा में 'D' के लिए क्या कूट है?

(1) 7
(2) 8
(3) **1 ✔**
(4) 6

Q.48 In a certain code language, 'ROAD' is coded as '4583' and 'HARD' is coded as '5831'. What is the code for 'H' in that language?

एक निश्चित कूट भाषा में, 'ROAD' को '4583' लिखा जाता है और 'HARD' को '5831' लिखा जाता है। उस भाषा में 'H' के लिए क्या कूट है?

(1) 8
(2) 3
(3) **1 ✔**
(4) 5

Q.49 Seven people, S, L, I, P, E, R and D are sitting in a row, facing north. Only three people sit between L and I. E sits to the immediate left of I. No one sits to the right of D. Only two people sit between D and E. S sits to the immediate right of R. How many people sit between P and S?

सात व्यक्ति, S, L, I, P, E, R और D एक पंक्ति में उत्तर की ओर मुख करके बैठे हैं। L और I के बीच केवल तीन व्यक्ति बैठे हैं। E, I के ठीक बाएँ बैठा है। D के दाएँ कोई नहीं बैठा है। D और E के बीच केवल दो व्यक्ति बैठे हैं। S, R के ठीक दाएँ बैठा है। P और S के बीच कितने व्यक्ति बैठे हैं?

(1) Three / तीन
(2) One / एक
(3) **Two / दो ✔**
(4) Four / चार

Q.50 EP 12 is related to GK 1 in a certain way. In the same way, MO 15 is related to OJ 4. To which of the following is MX 21 related, following the same logic?

EP 12 एक निश्चित प्रकार से GK 1 से संबंधित है। उसी प्रकार, MO 15, OJ 4 से संबंधित है। समान तर्क का अनुसरण करते हुए, MX 21 निम्नलिखित में से किससे संबंधित है?

(1) YT 14

(2) MK 11

(3) KL 13

(4) OS 10 ✔

Q.51 Seven boxes, D, E, F, G, U, V and W, are kept one over the other, but not necessarily in the same order. V is kept immediately above D. Only four boxes are kept between U and F. Only W is kept above U. Only two boxes are kept between G and
E. E is not kept immediately above V.
How many boxes are kept between W and V?

सात बक्से, D, E, F, G, U, V और W, एक के ऊपर एक रखे गए हैं, लेकिन जरूरी नहीं कि इसी क्रम में हों। V को D के ठीक ऊपर रखा गया है। U और F के बीच केवल चार बक्से रखे गए हैं। U के ऊपर केवल W रखा गया है। G और E के बीच केवल दो बक्से रखे गए हैं। E को V के ठीक ऊपर नहीं रखा गया है।
W और V के बीच कितने बक्से रखे गए हैं?

(1) One / एक

(2) Two / दो ✔

(3) Three / तीन

(4) Four / चार

Q.52 Seven boxes, D, E, F, G, U, V and W, are kept one over the other, but not necessarily in the same order. No box is kept above U. Only four boxes are kept between F and W. Only one box is kept between F and E. Only three boxes are kept between U and
G. E is kept immediately above G. D is kept at some place above V.
How many boxes are kept between G and D?

सात बक्से, D, E, F, G, U, V और W, एक के ऊपर एक रखे गए हैं, लेकिन जरूरी नहीं कि इसी क्रम में हों। U के ऊपर कोई बक्सा नहीं रखा गया है। F और W के बीच केवल चार बक्से रखे गए हैं। F और E के बीच केवल एक बक्सा रखा गया है। U और G के बीच केवल तीन बक्से रखे गए हैं। E को G के ठीक ऊपर रखा गया है। D को V के ऊपर किसी स्थान पर रखा गया है।
G और D के बीच कितने बक्से रखे गए हैं?

(1) Three / तीन

(2) Two / दो

(3) Four / चार

(4) One / एक ✔

Q.53 Refer to the following number series and answer the question that follows (all numbers are single-digit numbers only). Counting to be done from left to right only.
(Left) 3 4 6 7 8 5 7 9 4 1 1 5 2 8 9 8 3 1 8 9 7 4 2 (Right)
How many such odd numbers are there, each of which is immediately preceded by an odd number and also immediately followed by an odd number?

निम्नलिखित संख्या श्रृंखला को देखें और नीचे दिए गए प्रश्न का उत्तर दें (सभी संख्याएँ केवल एक-अंकीय संख्याएँ हैं)। गिनती केवल बाएँ से दाएँ की जानी है।
(बाएँ) 3 4 6 7 8 5 7 9 4 1 1 5 2 8 9 8 3 1 8 9 7 4 2 (दाएँ)
ऐसी कितनी विषम संख्याएँ हैं, जिनमें से प्रत्येक के ठीक पहले एक विषम संख्या है और ठीक बाद भी एक विषम संख्या है?

(1) One / एक
(2) **Two / दो ✔**
(3) Three / तीन
(4) None / कोई नहीं

Q.54 Refer to the following letter, symbol series and answer the question that follows.
Counting to be done from left to right only.
(Left) G D & E $ A K @ Z V & L Ω M Q # R * W Σ T ^ (Right)
How many such symbols are there, each of which is immediately preceded by a vowel but not immediately followed by a vowel?

निम्नलिखित अक्षर, प्रतीक श्रृंखला को देखें और नीचे दिए गए प्रश्न का उत्तर दें।
गिनती केवल बाएँ से दाएँ की जानी है।
(बाएँ) G D & E $ A K @ Z V & L Ω M Q # R * W Σ T ^ (दाएँ)
ऐसे कितने प्रतीक हैं, जिनमें से प्रत्येक के ठीक पहले एक स्वर है लेकिन ठीक बाद कोई स्वर नहीं है?

(1) Three / तीन
(2) One / एक
(3) **None / कोई नहीं ✔**
(4) Two / दो

Q.55 Each of B, A, R, C, O, D and E has an exam on a different day of a week starting from Monday and ending on Sunday of the same week. E has exam on Thursday and D has exam on Saturday. C has exam immediately before A. O has exam on one of the days after B. R has exam immediately after A. How many people have exam between O and R?

B, A, R, C, O, D और E में से प्रत्येक की परीक्षा एक ही सप्ताह के अलग-अलग दिन है, जो सोमवार से शुरू होकर उसी सप्ताह के रविवार को समाप्त होता है। E की परीक्षा गुरुवार को है और D की परीक्षा शनिवार को है। C की परीक्षा A से ठीक पहले है। O की परीक्षा B के बाद के दिनों में से किसी एक दिन है। R की परीक्षा A के ठीक बाद है। O और R के बीच कितने लोगों की परीक्षा है?

(1) Two / दो
(2) One / एक
(3) **Three / तीन ✔**
(4) Four / चार

Q.56 Seven people, D, E, F, G, U, V and W, are sitting around a circular table, facing the centre of the table. V sits to the immediate right of F. Only three people sit between G and E when counted from the left of G. Only three people sit between F and U when counted from the right of U. D sits immediately between U and E. How many people sit between D and W when counted from the right of D?

सात व्यक्ति, D, E, F, G, U, V और W, एक वृत्ताकार मेज़ के चारों ओर मेज़ के केंद्र की ओर मुख करके बैठे हैं। V, F के ठीक दाएँ बैठा है। G के बाएँ से गिनने पर G और E के बीच केवल तीन व्यक्ति बैठे हैं। U के दाएँ से गिनने पर F और U के बीच केवल तीन व्यक्ति बैठे हैं। D, U और E के ठीक बीच में बैठा है।
D के दाएँ से गिनने पर D और W के बीच कितने व्यक्ति बैठे हैं?

(1) One / एक ✔
(2) Four / चार
(3) Three / तीन
(4) Two / दो

Q.57 Refer to the following letter and symbol series and answer the question that follows.
(Left) U N @ D & A Z $ K V & L Ω M Q # W * R % T Σ (Right)
If all the letters are dropped from the series, which of the following will be sixth from the right?

निम्नलिखित अक्षर और प्रतीक श्रृंखला को देखें और नीचे दिए गए प्रश्न का उत्तर दें।
(बाएँ) U N @ D & A Z $ K V & L Ω M Q # W * R % T Σ (दाएँ)
यदि श्रृंखला से सभी अक्षर हटा दिए जाएँ, तो निम्नलिखित में से कौन दाएँ से छठे स्थान पर होगा?

(1) #
(2) $
(3) & ✔
(4) %

Q.58 In a certain code language, 'float above fears' is coded as 'mt kr el' and 'keep faith float' is coded as 'bx up el'. How is 'float'
coded in the given language?

एक निश्चित कूट भाषा में, 'float above fears' को 'mt kr el' लिखा जाता है और 'keep faith float' को 'bx up el' लिखा जाता है। दी गई भाषा में 'float' को कैसे लिखा जाता है?

(1) up
(2) kr
(3) mt
(4) el ✔

Q.59 Refer to the following letter series and answer the question that follows. Counting to be done from left to right only.
(Left) E T Q M F W U D S D P Y W E G I L O X (Right)
How many such vowels are there, each of which is immediately preceded by a consonant and also immediately followed by a consonant?

निम्नलिखित अक्षर श्रृंखला को देखें और नीचे दिए गए प्रश्न का उत्तर दें। गिनती केवल बाएँ से दाएँ की जानी है।
(बाएँ) E T Q M F W U D S D P Y W E G I L O X (दाएँ)
ऐसे कितने स्वर हैं, जिनमें से प्रत्येक के ठीक पहले एक व्यंजन है और ठीक बाद भी एक व्यंजन है?

(1) One / एक
(2) Four / चार ✔
(3) Three / तीन
(4) Two / दो

Q.60 Refer to the following letter and symbol series and answer the question that follows. Counting to be done from left to right only.
(Left) S K U N \ A A + Q W = K T / N X @ + D # L (Right)
How many such letters are there, each of which is immediately preceded by a letter and also immediately followed by a symbol?
निम्नलिखित अक्षर और प्रतीक श्रृंखला को देखें और नीचे दिए गए प्रश्न का उत्तर दें। गिनती केवल बाएँ से दाएँ की जानी है।
(बाएँ) S K U N \ A A + Q W = K T / N X @ + D # L (दाएँ)
ऐसे कितने अक्षर हैं, जिनमें से प्रत्येक के ठीक पहले एक अक्षर है और ठीक बाद एक प्रतीक है?

(1) Three / तीन
(2) **Five / पाँच ✔**
(3) Four / चार
(4) Two / दो

Q.61 What should come in place of the question mark (?) in the given series?
32 33 35 39 47 ?
दी गई श्रृंखला में प्रश्न चिह्न (?) के स्थान पर क्या आना चाहिए?
32 33 35 39 47 ?

(1) 65
(2) 62
(3) **63 ✔**
(4) 64

Q.62 If 'A' stands for '÷', 'B' stands for 'x', 'C' stands for '+' and 'D' stands for '-', what will come in place of the question mark (?) in the following equation?
4 B 3 D 15 A 5 C 1 = ? D 12
यदि 'A' का अर्थ '÷', 'B' का अर्थ 'x', 'C' का अर्थ '+' और 'D' का अर्थ '-' है, तो निम्नलिखित समीकरण में प्रश्न चिह्न (?) के स्थान पर क्या आएगा?
4 B 3 D 15 A 5 C 1 = ? D 12

(1) 24
(2) 18
(3) 20
(4) **22 ✔**

Q.63 Based on the English alphabetical order, three of the following four are alike in a certain way and thus form a group. Which is the one that does not belong to that group?
(Note: The odd one out is not based on the number of consonants/vowels or their position in the letter cluster.)
अंग्रेजी वर्णमाला क्रम के आधार पर, निम्नलिखित चार में से तीन किसी निश्चित प्रकार से एक समान हैं और इस प्रकार एक समूह बनाते हैं। वह कौन-सा है जो उस समूह से संबंधित नहीं है?
(नोट: असंगत अक्षर-समूह, व्यंजनों/स्वरों की संख्या या अक्षर-समूह में उनके स्थान पर आधारित नहीं है।)

(1) PNIG
(2) **SQLP ✔**
(3) CAVT
(4) RPKI

Quick Sarkari

Q.64 Two sets of numbers are given below. In each set of numbers, certain mathematical operation(s) on the first number result(s) in the second number.
Similarly, certain mathematical operation(s) on the second number result(s) in the third number and so on.
Which of the given options follows the same set of operations as in the given sets?
(NOTE: A two-/three-digit number cannot be broken into individual digits for operations. E.g., if 37 is followed by 10, the operation cannot be 3 + 7 as a two- digit number cannot be broken into individual digits.)
12 - 10 - 8 - 6 ; 9 - 7 - 5 - 3

नीचे संख्याओं के दो समुच्चय दिए गए हैं। संख्याओं के प्रत्येक समुच्चय में, पहली संख्या पर कुछ निश्चित गणितीय संक्रिया/संक्रियाएँ करने से दूसरी संख्या प्राप्त होती है।
इसी प्रकार, दूसरी संख्या पर कुछ निश्चित गणितीय संक्रिया/संक्रियाएँ करने से तीसरी संख्या प्राप्त होती है और इसी तरह आगे भी। दिए गए विकल्पों में से कौन-सा विकल्प दिए गए समुच्चयों की तरह संक्रियाओं के समान समुच्चय का अनुसरण करता है?
(नोट: संक्रियाओं के लिए दो/तीन-अंकीय संख्या को अलग-अलग अंकों में नहीं तोड़ा जा सकता। उदाहरण के लिए, यदि 37 के बाद 10 आता है, तो संक्रिया 3 + 7 नहीं हो सकती क्योंकि दो-अंकीय संख्या को अलग-अलग अंकों में नहीं तोड़ा जा सकता।)
12 - 10 - 8 - 6 ; 9 - 7 - 5 - 3

(1) 15 - 13 - 12 - 11
(2) **18 - 16 - 14 - 12 ✔**
(3) 27 - 25 - 23 - 22
(4) 20 - 10 - 8 - 6

Q.65 112 is related to 237 following a certain logic. Following the same logic, 95 is related to 220. To which of the following is 81 related, following the same logic?
(NOTE: Operations should be performed on the whole numbers, without breaking down the numbers into their constituent digits. E.g. 13 – Operations on 13 such as adding /subtracting /multiplying etc. to 13 can be performed. Breaking down 13 into 1 and 3 and then performing mathematical operations on 1 and 3 is not allowed.)

112 एक निश्चित तर्क का अनुसरण करते हुए 237 से संबंधित है। उसी तर्क का अनुसरण करते हुए, 95, 220 से संबंधित है। उसी तर्क का अनुसरण करते हुए, 81 निम्नलिखित में से किससे संबंधित है?
(नोट: संक्रियाएँ पूर्ण संख्याओं पर की जानी चाहिए, संख्याओं को उनके घटक अंकों में तोड़े बिना। उदाहरण के लिए 13 – 13 पर की जाने वाली संक्रियाएँ जैसे 13 में जोड़ना/घटाना/गुणा करना आदि की जा सकती हैं। 13 को 1 और 3 में तोड़कर फिर 1 और 3 पर गणितीय संक्रियाएँ करने की अनुमति नहीं है।)

(1) **206 ✔**
(2) 196
(3) 186
(4) 216

Q.66 Select the triad which follows the same pattern as that followed by the two triads given below. Both triads follow the same pattern.
MO - QS - UW EG - IK - MO

उस त्रिक का चयन करें जो उसी पैटर्न का अनुसरण करता है जिसका अनुसरण नीचे दिए गए दो त्रिकों द्वारा किया गया है। दोनों त्रिक एक ही पैटर्न का अनुसरण करते हैं।
MO - QS - UW EG - IK - MO

(1) EH - JL - LN
(2) KL - MP - QV
(3) **YA - CE - GI ✔**
(4) UX - WZ - YD

Q.67 Select the set in which the numbers are related in the same way as are the numbers of the following sets.
(NOTE: Operations should be performed on the whole numbers, without breaking down the numbers into their constituent digits. E.g. 13 – Operations on 13 such as adding to/subtracting from/multiplying with 13 can be performed. Breaking down 13 into 1 and 3 and then performing mathematical operations on 1 and 3 is not allowed.)
(14, 364, 13)
(11, 242, 11)

उस समुच्चय का चयन करें जिसमें संख्याएँ उसी प्रकार संबंधित हैं जिस प्रकार निम्नलिखित समुच्चयों की संख्याएँ संबंधित हैं।
(नोट: संक्रियाएँ पूर्ण संख्याओं पर की जानी चाहिए, संख्याओं को उनके घटक अंकों में तोड़े बिना। उदाहरण के लिए 13 – 13 पर की जाने वाली संक्रियाएँ जैसे 13 में जोड़ना/घटाना/गुणा करना आदि की जा सकती हैं। 13 को 1 और 3 में तोड़कर फिर 1 और 3 पर गणितीय संक्रियाएँ करने की अनुमति नहीं है।)
(14, 364, 13)
(11, 242, 11)

(1) (13, 338, 13) ✔
(2) (15, 450, 10)
(3) (12, 288, 14)
(4) (10, 180, 5)

Q.68 Select the set in which the numbers are related in the same way as are the numbers of the following sets.
(NOTE : Operations should be performed on the whole numbers, without breaking down the numbers into its constituent digits. E.g. 13 – Operations on 13 such as adding / subtracting / multiplying etc. to 13 can be performed. Breaking down 13 into 1 and 3 and then performing mathematical operations on 1 and 3 is not allowed.)
(1,21,18)
(14,17,1)

उस समुच्चय का चयन करें जिसमें संख्याएँ उसी प्रकार संबंधित हैं जिस प्रकार निम्नलिखित समुच्चयों की संख्याएँ संबंधित हैं।
(नोट: संक्रियाएँ पूर्ण संख्याओं पर की जानी चाहिए, संख्याओं को उनके घटक अंकों में तोड़े बिना। उदाहरण के लिए 13 – 13 पर की जाने वाली संक्रियाएँ जैसे 13 में जोड़ना/घटाना/गुणा करना आदि की जा सकती हैं। 13 को 1 और 3 में तोड़कर फिर 1 और 3 पर गणितीय संक्रियाएँ करने की अनुमति नहीं है।)
(1,21,18)
(14,17,1)

(1) (22,27,3) ✔
(2) (17,2,1)
(3) (5,5,18)
(4) (25,7,20)

Q.69 Each of the digits in the number 8934216 is arranged in ascending order from left to right. What will be the sum of the digits which are second from the left and second from the right in the new number thus formed?

संख्या 8934216 के प्रत्येक अंक को बाएँ से दाएँ आरोही क्रम में व्यवस्थित किया जाता है। इस प्रकार बनी नई संख्या में बाएँ से दूसरे और दाएँ से दूसरे अंकों का योग क्या होगा?

(1) 10 ✔
(2) 12
(3) 9
(4) 7

Q.70 Which of the following letter-number clusters will replace the question mark (?) in the given series to make it logically complete?
JJP 9 MHM −4 PFJ −17 SDG −30 ?
निम्नलिखित में से कौन-सा अक्षर-संख्या समूह दी गई श्रृंखला को तार्किक रूप से पूर्ण करने के लिए प्रश्न चिह्न (?) का स्थान लेगा?
JJP 9 MHM −4 PFJ −17 SDG −30 ?

(1) VHG −44
(2) VVY −48
(3) VBJ −46
(4) VBD −43 ✔

Q.71 If 'A' stands for '÷' , 'B' stands for '×', 'C' stands for '+' and 'D' stands for '-' , what will be come in place of question mark '?' in the following equation?
24 D 27 B 20 A 15 C 46 = ?
यदि 'A' का अर्थ '÷', 'B' का अर्थ '×', 'C' का अर्थ '+' और 'D' का अर्थ '-' है, तो निम्नलिखित समीकरण में प्रश्न चिह्न '?' के स्थान पर क्या आएगा?
24 D 27 B 20 A 15 C 46 = ?

(1) 35
(2) 34 ✔
(3) 36
(4) 32

Q.72 Each of the digits in the number 8934521 is arranged in ascending order from left to right. What will be the sum of the digits which are second from the left and second from the right in the new number thus formed?
संख्या 8934521 के प्रत्येक अंक को बाएँ से दाएँ आरोही क्रम में व्यवस्थित किया जाता है। इस प्रकार बनी नई संख्या में बाएँ से दूसरे और दाएँ से दूसरे अंकों का योग क्या होगा?

(1) 10 ✔
(2) 11
(3) 8
(4) 9

Q.73 Which of the following letter-number clusters will replace the question mark (?) in the given series to make it logically complete?
ZEZ 5 UJV -10 POR 20 KTN -40 ?
निम्नलिखित में से कौन-सा अक्षर-संख्या समूह दी गई श्रृंखला को तार्किक रूप से पूर्ण करने के लिए प्रश्न चिह्न (?) का स्थान लेगा?
ZEZ 5 UJV -10 POR 20 KTN -40 ?

(1) JKO 43
(2) MJU 67
(3) FYJ 80 ✔
(4) NMK 44

QuickSarkari.com | WhatsApp Channel | Telegram: t.me/quick_sarkari

Q.74 Select the correct mirror image of the given combination when the mirror is placed at 'PQ' as shown below.



जब दर्पण को नीचे दर्शाए अनुसार 'PQ' पर रखा जाता है, तो दिए गए संयोजन की सही दर्पण छवि का चयन करें।

(1) ⊦WƧ⊥BЬ

(2) ⊀B⊥SW⊀

(3) ЬB⊥ƧM⊀ ✔

(4) ЬS⊥BM⊀

Q.75 20 is related to 85 following a certain logic. Following the same logic, 15 is related to 65. To which of the following is 23 related, following the same logic?
(NOTE: Operations should be performed on the whole numbers, without breaking down the numbers into its constituent digits. E.g. 13 – Operations on 13 such as adding/subtracting/multiplying etc. to 13 can be performed. Breaking down 13 into 1 and 3 and then performing mathematical operations on 1 and 3 is not allowed.)

20 एक निश्चित तर्क का अनुसरण करते हुए 85 से संबंधित है। उसी तर्क का अनुसरण करते हुए, 15, 65 से संबंधित है। उसी तर्क का अनुसरण करते हुए, 23 निम्नलिखित में से किससे संबंधित है?
(नोट: संक्रियाएँ पूर्ण संख्याओं पर की जानी चाहिए, संख्याओं को उनके घटक अंकों में तोड़े बिना। उदाहरण के लिए 13 – 13 पर की जाने वाली संक्रियाएँ जैसे 13 में जोड़ना/घटाना/गुणा करना आदि की जा सकती हैं। 13 को 1 और 3 में तोड़कर फिर 1 और 3 पर गणितीय संक्रियाएँ करने की अनुमति नहीं है।)

(1) 107

(2) 92

(3) **97** ✔

(4) 103

Q.76 Based on the English alphabetical order, three of the following four letter-clusters are alike in a certain way and thus form a group. Which is the one that does not belong to that group?
(Note: The odd one out is not based on the number of consonants/vowels or their position in the letter cluster.)

अंग्रेजी वर्णमाला क्रम के आधार पर, निम्नलिखित चार अक्षर-समूहों में से तीन किसी निश्चित प्रकार से एक समान हैं और इस प्रकार एक समूह बनाते हैं। वह कौन-सा है जो उस समूह से संबंधित नहीं है?
(नोट: असंगत अक्षर-समूह, व्यंजनों/स्वरों की संख्या या अक्षर-समूह में उनके स्थान पर आधारित नहीं है।)

(1) EXRP

(2) CVPN

(3) **PJCA** ✔

(4) MFZX

Q.77 What should come in place of ? in the given series?
5 -7 -21 -37 -55 ?
दी गई श्रृंखला में ? के स्थान पर क्या आना चाहिए?
5 -7 -21 -37 -55 ?

(1) -76
(2) -73
(3) **-75 ✔**
(4) -74

Q.78 Based on the English alphabetical order, three of the following four letter-cluster pairs are alike in a certain way and thus form a group. Which is the one that does not belong to that group?
(Note: The odd one out is not based on the number of consonants/vowels or their position in the letter cluster.)
अंग्रेजी वर्णमाला क्रम के आधार पर, निम्नलिखित चार अक्षर-समूह युग्मों में से तीन किसी निश्चित प्रकार से एक समान हैं और इस प्रकार एक समूह बनाते हैं। वह कौन-सा है जो उस समूह से संबंधित नहीं है?
(नोट: असंगत अक्षर-समूह, व्यंजनों/स्वरों की संख्या या अक्षर-समूह में उनके स्थान पर आधारित नहीं है।)

(1) DF–GI
(2) LN–OQ
(3) MO–PR
(4) **HJ–KN ✔**

Q.79 If 'A' stands for '÷', 'B' stands for 'x', 'C' stands for '+' and 'D' stands for '-', what will come in place of the question mark (?) in the following equation?
9 B 3 D 14 A 2 C 1 = ? D 2
यदि 'A' का अर्थ '÷', 'B' का अर्थ 'x', 'C' का अर्थ '+' और 'D' का अर्थ '-' है, तो निम्नलिखित समीकरण में प्रश्न चिह्न (?) के स्थान पर क्या आएगा?
9 B 3 D 14 A 2 C 1 = ? D 2

(1) **23 ✔**
(2) 27
(3) 21
(4) 25

Q.80 What should come in place of ? in the given series?
10 11 13 17 25 ?
दी गई श्रृंखला में ? के स्थान पर क्या आना चाहिए?
10 11 13 17 25 ?

(1) **41 ✔**
(2) 42
(3) 43
(4) 40

QuickSarkari.com | WhatsApp Channel | Telegram: t.me/quick_sarkari

Arithmetical and Numerical Ability

Q.81 The average of five consecutive odd multiples of 17 is 119. Find the difference between the largest and smallest numbers.

17 के पाँच क्रमागत विषम गुणजों का औसत 119 है। सबसे बड़ी और सबसे छोटी संख्याओं के बीच का अंतर ज्ञात कीजिए।

(1) 163
(2) 142
(3) **136** ✔
(4) 124

Q.82 What is the ratio of the Least Common Multiple to the Highest Common Factor of two numbers whose ratio is 4:7 and whose sum is 44?

उन दो संख्याओं के लघुत्तम समापवर्त्य और महत्तम समापवर्तक का अनुपात क्या है, जिनका अनुपात 4:7 है और जिनका योग 44 है?

(1) 7:4
(2) **28:1** ✔
(3) 4:7
(4) 14:1

Q.83 By how much is 30% of 75 greater than 20% of 45?

75 का 30%, 45 के 20% से कितना अधिक है?

(1) **13.5** ✔
(2) 15.5
(3) 10.5
(4) 8.5

QuickSarkari

Q.84 Study the chart carefully and answer the question that follows.
The pie-chart given below shows the spending of a state on various sports during a particular year.

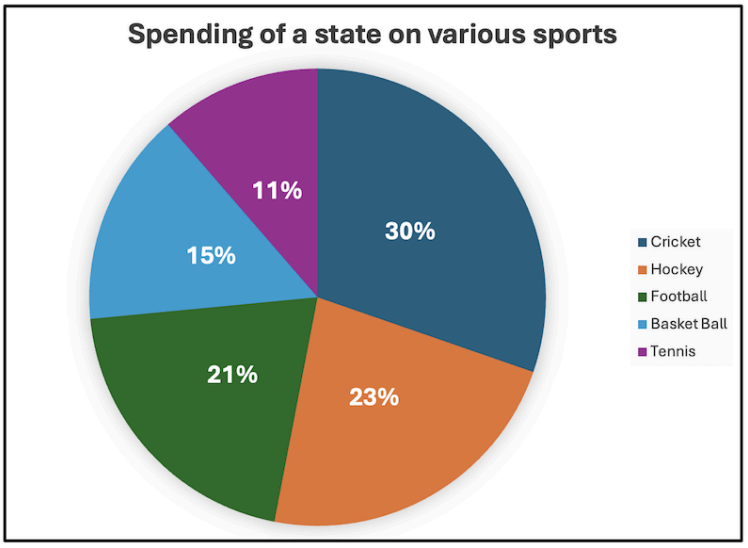

Find the percentage difference between spending on hockey and tennis.
चार्ट का ध्यानपूर्वक अध्ययन करें और नीचे दिए गए प्रश्न का उत्तर दें।
नीचे दिया गया पाई-चार्ट एक विशेष वर्ष के दौरान विभिन्न खेलों पर एक राज्य के व्यय को दर्शाता है।
हॉकी और टेनिस पर व्यय के बीच प्रतिशत अंतर ज्ञात कीजिए।

(1) 8%
(2) **12% ✔**
(3) 13%
(4) 11%

Q.85 Mukund has two grandsons, Sachin and Chetan. 11-year-old Sachin gets some money from Mukund's wealth, and 12-year-old Chetan gets the rest of the money.
However, both will receive the money only when they turn 21 years old. Until then, the money is kept in a bank earning interest at 10% compounded annually. When they each turn 21, they receive the same amount.
How much had Mukund given to Chetan initially, if the total money with Mukund was ₹25,200?
मुकुंद के दो पोते, सचिन और चेतन हैं। 11 वर्षीय सचिन को मुकुंद की संपत्ति से कुछ धनराशि मिलती है, और 12 वर्षीय चेतन को शेष धनराशि मिलती है।
हालाँकि, दोनों को धनराशि तभी मिलेगी जब वे 21 वर्ष के हो जाएँगे। तब तक धनराशि बैंक में 10% वार्षिक चक्रवृद्धि ब्याज पर जमा रहती है। जब वे दोनों 21 वर्ष के होते हैं, तो उन्हें समान राशि प्राप्त होती है। यदि मुकुंद के पास कुल ₹25,200 थे, तो मुकुंद ने प्रारंभ में चेतन को कितनी राशि दी थी?

(1) 11,750
(2) **13,200 ✔**
(3) 13,550
(4) 12,000

Q.86 If 10 workers working for 4 hours complete the work in 12 days, in how many days will 8 workers working for 6 hours complete the same work?
यदि 10 श्रमिक प्रतिदिन 4 घंटे काम करके किसी कार्य को 12 दिनों में पूरा करते हैं, तो 8 श्रमिक प्रतिदिन 6 घंटे काम करके उसी कार्य को कितने दिनों में पूरा करेंगे?

(1) 9 days / 9 दिन
(2) 8 days / 8 दिन
(3) **10 days / 10 दिन ✔**
(4) 11 days / 11 दिन

Q.87 Find the simplified value of $38^{-10} \div 38^{18} \times 38^{-17}$

$38^{-10} \div 38^{18} \times 38^{-17}$ का सरलीकृत मान ज्ञात कीजिए।

(1) 38-51

(2) **38-45** ✔

(3) 38-41

(4) 38-44

Q.88 The arithmetic mean of the observations 72, 14, 92, 93, 70, 19, 98, 34 and 39 is:

प्रेक्षणों 72, 14, 92, 93, 70, 19, 98, 34 और 39 का समांतर माध्य है:

(1) 54

(2) 57

(3) **59** ✔

(4) 60

Q.89 Amit's income in 2019 was ₹26800. He gets an increment of 30% every year. What was his income (in ₹) in 2021?

वर्ष 2019 में अमित की आय ₹26800 थी। उसे प्रत्येक वर्ष 30% की वेतन वृद्धि मिलती है। वर्ष 2021 में उसकी आय (₹ में) कितनी थी?

(1) 26800

(2) **45292** ✔

(3) 42880

(4) 34840

Q.90 Tushar has two grandsons, Salil and Mukund. 10-year-old Salil gets some money from Tushar's wealth, and 11-year-old Mukund gets the rest of the money. But Salil and Mukund will get the money only when they turn 21 years old. Till then, the money is in a bank getting interest at rate 10% compounded annually. When both turn 21, they receive the same amount. How much had Tushar given Mukund (in ₹) initially, if the total money with Tushar was ₹23,100?

तुषार के दो पोते, सलिल और मुकुंद हैं। 10 वर्षीय सलिल को तुषार की संपत्ति से कुछ धनराशि मिलती है, और 11 वर्षीय मुकुंद को शेष धनराशि मिलती है। लेकिन सलिल और मुकुंद को धनराशि तभी मिलेगी जब वे 21 वर्ष के हो जाएँगे। तब तक धनराशि बैंक में 10% वार्षिक चक्रवृद्धि ब्याज की दर पर जमा रहती है। जब दोनों 21 वर्ष के होते हैं, तो उन्हें समान राशि प्राप्त होती है। यदि तुषार के पास कुल ₹23,100 थे, तो तुषार ने प्रारंभ में मुकुंद को (₹ में) कितनी राशि दी थी?

(1) **12100** ✔

(2) 10750

(3) 12450

(4) 11000

Q.91 Find the simple interest (in ₹) on ₹5000 as a sum borrowed at 5% per year rate of interest for 4 years.

₹5000 की उधार ली गई राशि पर 5% वार्षिक ब्याज दर से 4 वर्ष का साधारण ब्याज (₹ में) ज्ञात कीजिए।

(1) 960

(2) 1040

(3) **1000** ✔

(4) 940

Q.92 20% of [{(220% of 40) − 20}] of 2500 = _____.

2500 के [{(40 का 220%) − 20}] का 20% = _____.

(1) 32000

(2) 33000

(3) **34000** ✔

(4) 35000

Q.93 There is milk sample with 40% water in it. If one-fifth of this milk is added to equal amount of pure milk, then water in the new mixture will fall down to:

दूध के एक नमूने में 40% पानी है। यदि इस दूध का पाँचवाँ भाग उतनी ही मात्रा के शुद्ध दूध में मिलाया जाए, तो नए मिश्रण में पानी घटकर कितना रह जाएगा?

(1) 22.6%

(2) 22%

(3) 21.4%

(4) **20%** ✔

Q.94 The value of $((59049)^{1/5} \times (28)^3)/(3^2 \times 7^2 \times 2^6)$ is:

$((59049)^{1/5} \times (28)^3)/(3^2 \times 7^2 \times 2^6)$ का मान है:

(1) **7** ✔

(2) 9

(3) 12

(4) 4

Q.95 Which of the following numbers is divisible by 54?

निम्नलिखित में से कौन-सी संख्या 54 से विभाज्य है?

(1) 798852

(2) 794792

(3) **797148** ✔

(4) 796906

Q.96 Simplify 0.75 + 2/5

0.75 + 2/5 को सरल कीजिए

(1) 0.95

(2) 1.05

(3) **1.15** ✔

(4) 1.25

Q.97 The H.C.F. and L.C.M. of two numbers are 2 and 426, respectively. If one of the numbers is 142, find the other one.

दो संख्याओं का म.स. (H.C.F.) और ल.स. (L.C.M.) क्रमशः 2 और 426 हैं। यदि उनमें से एक संख्या 142 है, तो दूसरी संख्या ज्ञात कीजिए।

(1) 4

(2) 18

(3) **6** ✔

(4) 3

QuickSarkari.com | WhatsApp Channel | Telegram: t.me/quick_sarkari

Q.98 In what ratio must a grocer mix two varieties of wheat worth ₹95 per kg and ₹122 per kg so that if he sells the mixture at ₹127 per kg, he may gain 27%?

एक पंसारी को ₹95 प्रति kg और ₹122 प्रति kg मूल्य वाली गेहूँ की दो किस्मों को किस अनुपात में मिलाना चाहिए ताकि मिश्रण को ₹127 प्रति kg पर बेचने पर उसे 27% का लाभ हो?

(1) 27:2

(2) **22:5** ✔

(3) 32:10

(4) 24:6

Q.99 Simplify (18/2 + 19/8 of 8/2)/(12 − 19/8 ÷ 2/8)

सरल कीजिए (18/2 + 19/8 का 8/2)/(12 − 19/8 ÷ 2/8)

(1) 39/7

(2) 43/6

(3) 28/9

(4) **37/5** ✔

Q.100 The bar graph below shows the number of laptops sold by a company during five consecutive years.

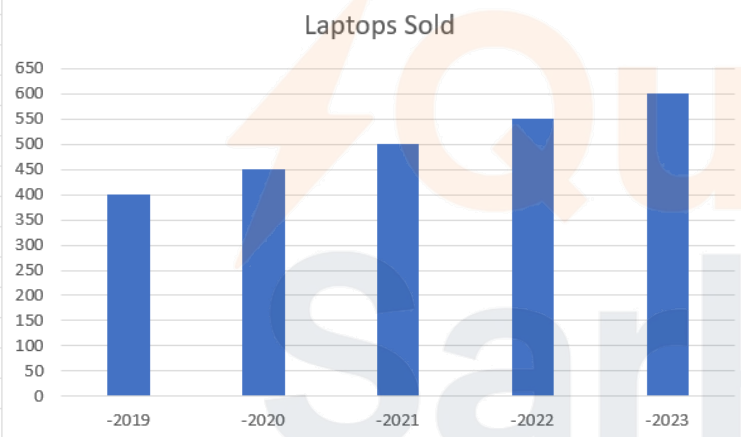

What is the average number of laptops sold per year over these five years?

नीचे दिया गया बार ग्राफ लगातार पाँच वर्षों के दौरान एक कंपनी द्वारा बेचे गए लैपटॉप की संख्या को दर्शाता है।

इन पाँच वर्षों में प्रति वर्ष बेचे गए लैपटॉप की औसत संख्या कितनी है?

(1) 620

(2) **500** ✔

(3) 560

(4) 480

Q.101 If a sum of ₹7601 is divided between Ravina and Sarita in the ratio 2 : 9, then find Sarita's share (in ₹).

यदि ₹7601 की राशि रवीना और सरिता के बीच 2 : 9 के अनुपात में विभाजित की जाती है, तो सरिता का हिस्सा (₹ में) ज्ञात कीजिए।

(1) 6221

(2) 6220

(3) 6217

(4) **6219** ✔

Q.102 Find the outer curved surface area of a conical vessel having a radius of 8 cm and a height of 15 cm. (Use π = 22/7)

8 cm त्रिज्या और 15 cm ऊँचाई वाले एक शंक्वाकार बर्तन का बाहरी वक्र पृष्ठीय क्षेत्रफल ज्ञात कीजिए। (प्रयोग करें π = 22/7)

(1) 3892/7 cm^2

(2) **2992/7 cm^2 ✔**

(3) 1992/7 cm^2

(4) 2999/7 cm^2

Q.103 Pipe A can fill a tank in 15 hours, pipe B can fill the same tank in 23 hours and pipe C can fill the same tank in 15 hours. The time taken by them to fill the same tank if they operate together is:

पाइप A एक टंकी को 15 घंटे में भर सकता है, पाइप B उसी टंकी को 23 घंटे में भर सकता है और पाइप C उसी टंकी को 15 घंटे में भर सकता है। यदि वे एक साथ कार्य करें, तो उसी टंकी को भरने में उनके द्वारा लिया गया समय है:

(1) 10 40/61 hours / 10 40/61 घंटे

(2) **5 40/61 hours / 5 40/61 घंटे ✔**

(3) 9 40/61 hours / 9 40/61 घंटे

(4) 4 40/61 hours / 4 40/61 घंटे

Q.104 Divide ₹5,978 into three parts such that half of the first part, one-fourth of the second part and one-eighth of the third part are equal. Find the third part (in ₹).

₹5,978 को तीन भागों में इस प्रकार विभाजित कीजिए कि पहले भाग का आधा, दूसरे भाग का एक-चौथाई और तीसरे भाग का एक-आठवाँ भाग बराबर हों। तीसरा भाग (₹ में) ज्ञात कीजिए।

(1) 3,616

(2) 3,116

(3) 3,216

(4) **3,416 ✔**

Q.105 A garrison of 1210 men has provisions for 13 days. How long (in days) will the provisions last if the garrison be increased by 363 men?

1210 सैनिकों की एक सैन्य टुकड़ी के पास 13 दिनों के लिए रसद है। यदि टुकड़ी में 363 सैनिक बढ़ा दिए जाएँ, तो रसद कितने दिनों तक चलेगी?

(1) 20

(2) **10 ✔**

(3) 30

(4) 5

Q.106 The distance between two stations is 350 km. Two trains start simultaneously from these stations on parallel tracks to cross each other. The speed of one train is 5 km/hour greater than that of the other. If the distance between the two trains after 2 hours is 20 km, find the speed (in km/hour) of the faster train.

दो स्टेशनों के बीच की दूरी 350 km है। दो रेलगाड़ियाँ एक-दूसरे को पार करने के लिए समानांतर पटरियों पर इन स्टेशनों से एक साथ चलना शुरू करती हैं। एक रेलगाड़ी की चाल दूसरी की चाल से 5 km/घंटा अधिक है। यदि 2 घंटे बाद दोनों रेलगाड़ियों के बीच की दूरी 20 km है, तो तेज़ रेलगाड़ी की चाल (km/घंटा में) ज्ञात कीजिए।

(1) **85 ✔**

(2) 82

(3) 80

(4) 88

Q.107 Find the area of a regular hexagon with a side length of 12 cm.

12 cm भुजा वाले एक सम षट्भुज का क्षेत्रफल ज्ञात कीजिए।

(1) $216\sqrt{5}$ cm^2

(2) $116\sqrt{3}$ cm^2

(3) **$216\sqrt{3}$ cm^2 ✔**

(4) $116\sqrt{5}$ cm^2

Q.108 Two runners start together from the same point on a circular track of 300 m length and run in the same direction. Their speeds are 6 m/s and 4 m/s respectively. After how many seconds will they meet again at the starting point?

दो धावक 300 m लंबाई वाले एक वृत्ताकार ट्रैक पर एक ही बिंदु से एक साथ दौड़ना शुरू करते हैं और एक ही दिशा में दौड़ते हैं। उनकी चाल क्रमशः 6 m/s और 4 m/s है। कितने सेकंड बाद वे आरंभिक बिंदु पर पुनः मिलेंगे?

(1) 250 s

(2) 100 s

(3) 220 s

(4) **150 s ✔**

Q.109 Find the surface area of a cuboid with dimensions 6 m × 3 m × 0.25 m.

6 m × 3 m × 0.25 m विमाओं वाले एक घनाभ का पृष्ठीय क्षेत्रफल ज्ञात कीजिए।

(1) 35.5 m^2

(2) 30.5 m^2

(3) **40.5 m^2 ✔**

(4) 42.5 m^2

Q.110 A hemispherical bowl has a radius of 7 cm. Find its curved surface area. (Use π = 22/7)

एक अर्धगोलाकार कटोरे की त्रिज्या 7 cm है। इसका वक्र पृष्ठीय क्षेत्रफल ज्ञात कीजिए। (π = 22/7 का प्रयोग करें)

(1) 154 cm^2

(2) 616 cm^2

(3) 462 cm^2

(4) **308 cm^2 ✔**

Q.111 A man incurs a loss of 33% by selling an article for ₹134. If he sells it for ₹492, what will be his gain percentage?

एक व्यक्ति को एक वस्तु ₹134 में बेचने पर 33% की हानि होती है। यदि वह इसे ₹492 में बेचता है, तो उसका लाभ प्रतिशत क्या होगा?

(1) 148%

(2) **146% ✔**

(3) 145%

(4) 149%

QuickSarkari.com | WhatsApp Channel | Telegram: t.me/quick_sarkari

Q.112 After allowing a discount of 30% on its marked price, the value of a smart TV is ₹23,520. If no discount is allowed, then the shopkeeper gains 20%. The cost price of the smart TV is:

अंकित मूल्य पर 30% की छूट देने के बाद, एक स्मार्ट टीवी का मूल्य ₹23,520 है। यदि कोई छूट नहीं दी जाती है, तो दुकानदार को 20% का लाभ होता है। स्मार्ट टीवी का क्रय मूल्य है:

(1) ₹27,988

(2) ₹28,011

(3) ₹27,944

(4) ₹28,000 ✔

Q.113 A shopkeeper sets the marked price of a product at 8% over its cost price. If the shopkeeper offers a 5% discount on the marked price, what is her profit percentage?

एक दुकानदार किसी उत्पाद का अंकित मूल्य उसके क्रय मूल्य से 8% अधिक निर्धारित करती है। यदि दुकानदार अंकित मूल्य पर 5% की छूट देती है, तो उसका लाभ प्रतिशत क्या है?

(1) 2.6% ✔

(2) 1.6%

(3) 2.5%

(4) 1.1%

Q.114 The sum of perimeters of the six faces of a cuboid is 88 cm and the total surface area of the cuboid is 32 sq. cm. Find the longest possible length that can be kept inside the cuboid.

एक घनाभ के छह फलकों के परिमापों का योग 88 cm है और घनाभ का कुल पृष्ठीय क्षेत्रफल 32 वर्ग cm है। घनाभ के अंदर रखी जा सकने वाली सबसे लंबी संभव लंबाई ज्ञात कीजिए।

(1) √79 cm

(2) √89 cm ✔

(3) √73 cm

(4) √83 cm

Q.115 The circumference of the base of a cylindrical vessel is 800 cm, and its height is 77 cm. How many litres of water can it hold?
(Use π = 22/7)

एक बेलनाकार बर्तन के आधार की परिधि 800 cm है और इसकी ऊँचाई 77 cm है। इसमें कितने लीटर पानी आ सकता है?
(π = 22/7 का प्रयोग कीजिए)

(1) 3,948

(2) 3,920 ✔

(3) 3,953

(4) 3,914

Q.116 A worker earns ₹5,000 for working 10 hours. How much will he earn for working 26 hours at the same rate?

एक श्रमिक 10 घंटे काम करने के लिए ₹5,000 कमाता है। उसी दर से 26 घंटे काम करने पर वह कितना कमाएगा?

(1) ₹12,500

(2) ₹13,000 ✔

(3) ₹13,500

(4) ₹15,000

Q.117 The sides of a rhombus are each 10 cm long, and one of its diagonals is 16 cm. What is the area of the rhombus?

एक समचतुर्भुज की प्रत्येक भुजा 10 cm लंबी है, और उसका एक विकर्ण 16 cm है। समचतुर्भुज का क्षेत्रफल कितना है?

(1) 60 cm^2

(2) **96 cm^2 ✔**

(3) 80 cm^2

(4) 120 cm^2

Q.118 Divide ₹27,300 into three parts in such a way that half of the first part, one-fourth of the second part and one-eighth of the third part are equal. What is the value of the first part (in ₹)?

₹27,300 को तीन भागों में इस प्रकार विभाजित कीजिए कि पहले भाग का आधा, दूसरे भाग का एक-चौथाई और तीसरे भाग का एक-आठवाँ भाग बराबर हों। पहले भाग का मान (₹ में) क्या है?

(1) 3700

(2) 3600

(3) **3900 ✔**

(4) 4100

Q.119 A conical tent is of diameter 12 m at the base and its height is 8 m. Find its slant height.

एक शंक्वाकार तंबू के आधार का व्यास 12 m है और इसकी ऊँचाई 8 m है। इसकी तिर्यक ऊँचाई ज्ञात कीजिए।

(1) **10 m ✔**

(2) 12 m

(3) 14 m

(4) 8 m

Q.120 A retailer buys an electronic item for ₹230. His overhead expenses are ₹20. He sells the electronic item for ₹400 and makes x% profit. The value of x is:

एक खुदरा विक्रेता एक इलेक्ट्रॉनिक वस्तु ₹230 में खरीदता है। उसके ऊपरी खर्च ₹20 हैं। वह इलेक्ट्रॉनिक वस्तु को ₹400 में बेचता है और x% लाभ कमाता है। x का मान है:

(1) 40

(2) 50

(3) **60 ✔**

(4) 80

Hindi Language and Comprehension

Q.121 'जिसका निवारण नहीं किया जा सके' वाक्यांश के लिए एक शब्द होगा-

(1) दुश्वार

(2) दुराग्रह

(3) **अनिवार्य ✔**

(4) दुर्निवार

Q.122 दिए गए वाक्यांश के लिए सार्थक शब्द चुनें- वह दृश्य, जिसे देखकर रोंगटे खड़े हो जाएँ

(1) सुंदर
(2) रचयिता
(3) आंशिक
(4) लोमहर्षक ✔

Q.123 'ठीकरा फोड़ना' मुहावरे का क्या अर्थ है?

(1) दोष लगाना ✔
(2) व्यर्थ का झंझट
(3) अति क्रुद्ध होना
(4) सब उपाय कर डालना

Q.124 निम्नलिखित वाक्यों में उनके प्रथम तथा अन्तिम अंश संख्या 1 और 6 के अन्तर्गत दिए गए हैं। बीच वाले चार अंश (य), (र), (ल), (व) बिना क्रम के हैं। चारों अंशों को उचित क्रमानुसार व्यवस्थित कर सही विकल्प चुनिए।
(1) आप सबको धोखा (य) धोखा दे सकते हो, पर (र) खुद को नहीं (ल) दे सकते, आप खुद को (व) दे सकते हैं पर
(6) वक्त को नहीं दे सकते।

(1) ल य र व
(2) ल व य र
(3) ल य व र
(4) व र ल य ✔

Q.125 दिए गए विकल्पों में से 'गांगेय' के लिए सार्थक वाक्यांश है-

(1) पुण्य सलिला
(2) गंगा से उत्पन्न ✔
(3) गंगा नदी
(4) गंगा का तट

Q.126 दिए गए वाक्य को सही क्रम में लगाइए- (1)सीधा संबंध (2)लोक कथाओं का (3)होता है (4)जन-मानस से

(1) 2 1 4 3 ✔
(2) 2 3 4 1
(3) 3 4 2 1
(4) 4 3 2 1

Q.127 निम्नलिखित में से किस लोकोक्ति का अर्थ संगत नहीं है?

(1) चमड़ी जाये पर दमड़ी ना जाये - बहुत कंजूस
(2) घर खीर तो बाहर खीर - घर का कोई काम नहीं करना ✔
(3) घी कहाँ गया? खिचड़ी में - वस्तु का प्रयोग सही जगह हो गया
(4) चाकरी में ना करी क्या - नौकरी में स्वामी की आज्ञा माननी पड़ती है

Q.128 पर्यावरण प्रदूषण की वजह से सरकार की नीतियाँ आलोचना के योग्य हो गई हैं।
रेखांकित वाक्यांश के लिए सार्थक शब्द क्या है?

(1) कर्तव्यच्युत
(2) अलौकिक
(3) आलोच्य ✔
(4) अग्रशोची

Q.129 'जी भर आना' मुहावरे का क्या अर्थ है?

(1) पेट भरना

(2) **दुखी होना ✔**

(3) मन करना

(4) वादा करना

Q.130 दिए गए वाक्य में रिक्त स्थान के लिए उपयुक्त क्रिया चुनें।
लड़का मिठाई लेकर ..... हुआ घर आया।

(1) दौड़

(2) दोड़ता

(3) **दौड़ता ✔**

(4) दौड़ती

Q.131 इस पर्वत की भव्य सुंदरता मन को मोहित कर लेती है। वाक्य में ..... विशेषण है।
दिए गए विकल्प में से विशेषण के उचित भेद को चुन कर वाक्य पूर्ण करें -

(1) संख्यावाचक

(2) परिमाणवाचक

(3) **गुणवाचक ✔**

(4) सार्वनामिक

Q.132 कारक के आधार पर निम्न वाक्य पूर्ण करें - शिक्षक ने छात्र को कठिन प्रश्न _____ समाधान समझाया।

(1) के

(2) की

(3) **का ✔**

(4) कि

Q.133 निम्नलिखित वाक्यांश के लिए सार्थक शब्द चुनियेकठिनाइयों से भागने की प्रवृत्ति

(1) आगामी

(2) गतिमयता

(3) **पलायनवाद ✔**

(4) उद्देश्यहीनता

Q.134 मेहमान कम खा रहे हैं। वाक्य में ..... क्रिया-विशेषण है।
दिए गए विकल्प में से क्रिया-विशेषण के उचित भेद को चुन कर वाक्य पूर्ण करें -

(1) परिमाणवाचक

(2) स्थानवाचक

(3) **रीतिवाचक ✔**

(4) कालवाचक

Q.135 दिए गए लोकोक्ति का सही अर्थ बताइए।
घर में नहीं दाने बुढ़िया चली भुनाने

(1) लाभ ही लाभ होना

(2) **झूठा दिखावा करना ✔**

(3) बहुत कंजूस होना

(4) अचानक सफलता मिलना

Q.136 रेखांकित कारक चिह्न के आधार पर कारक के उचित भेद का चुनाव करें- गाँव के लोग बहुत सहृदय हैं। वाक्य में ..... कारक है।

(1) करण कारक

(2) अधिकरण कारक

(3) संप्रदान कारक

(4) संबंध कारक ✔

Q.137 'कच्चा चिट्ठा खोलना' मुहावरे का क्या अर्थ है?

(1) दरवाज़ा खोलना

(2) खाना ठीक से न पकाना

(3) किताब खोलना

(4) सब भेद खोल देना ✔

Q.138 दिए गए वाक्य में रिक्त स्थान के लिए उपयुक्त क्रिया चुनें- ठिकाने पर पहुँच कर उसने चैन की ..... ।

(1) साँस की

(2) साँस ली ✔

(3) साँस करी

(4) साँस चली

Q.139 'पाँच पंच मिल कीजे काजा, हारे-जीते कछु नहीं लाजा' लोकोक्ति का अर्थ क्या है?

(1) मिलकर काम करने पर हार-जीत की जिम्मेदारी एक पर नहीं आती। ✔

(2) अपने घर में सब सीधे होते हैं, बाहर अकड़ दिखते हैं।

(3) भलाई का काम करके फल की इच्छा कभी मत करो।

(4) जब आवश्यकता नहीं होती तब अच्छी चीज़ भी बुरी लगती है।

Q.140 अध्यापिका ने बच्चों से निबंध लिखवाया में कौन सी क्रिया है?

(1) सकर्मक

(2) सामान्य

(3) संयुक्त

(4) प्रेरणार्थक ✔

Q.141 दिए गए वाक्य के किस भाग में त्रुटि है?
मैं आधी अस्तीन की कमीज़ पहनता हूँ।

(1) अस्तीन की ✔

(2) पहनता हूँ।

(3) कमीज़

(4) मैं आधी

Q.142 नीचे दिए गए रेखांकित शब्द के लिए उपयुक्त विलोम शब्द चुनकर रिक्त स्थान पूर्ण कीजिए।
जो व्यक्ति काम करने में असमर्थ है, उसे अशक्त कहते हैं; और जो हर कार्य कर सकता है, वह _____ कहलाता है।

(1) निर्बल

(2) निष्क्रिय

(3) अकर्म

(4) सशक्त ✔

QuickSarkari.com | WhatsApp Channel | Telegram: t.me/quick_sarkari

Q.143 निम्नलिखित वाक्य में रेखांकित शब्द का पर्यायवाची शब्द कौन-सा है?
तुम्हारा मामला थोड़ा जटिल है।

(1) पेचीदा ✔
(2) मेदिनी
(3) बलिष्ठ
(4) अमिय

Q.144 दिए गए वाक्य के किस भाग में त्रुटि है?
यह औषधि केवल परीक्षित सूत्रों के आधार पर तैयार की गई है, इसलिए इसके दुष्प्रभाव न्युतनम हैं।

(1) न्युतनम ✔
(2) औषधि
(3) दुष्प्रभाव
(4) परीक्षित

Q.145 निम्नलिखित वाक्य में रेखांकित शब्द का विलोम शब्द कौन सा है?
यह इमारत बहुत प्राचीन लग रही है।

(1) सुंदर
(2) तृप्त
(3) नवीन ✔
(4) छोटी

Q.146 किसी मुद्दे पर एकांगी दृष्टिकोण अपनाना सही निर्णय लेने में बाधक हो सकता है।
वाक्य में प्रयुक्त एकांगी शब्द का विलोम क्या है।

(1) सर्वांगीण ✔
(2) इतिहास
(3) आंशिक
(4) पक्षपाती

Q.147 निम्नलिखित विकल्पों में से शुद्ध वर्तनी वाले वाक्य का चयन कीजिए।

(1) वह अब निरोग है।
(2) वह अब नीरोग है। ✔
(3) वह अब निहरोग है।
(4) वह अन निःरोग है।

Q.148 निम्नलिखित वाक्य में रेखांकित शब्द का विलोम शब्द कौन सा है?
चमेली को निंदा करने में बहुत आनंद आता है।

(1) निंद्रा
(2) स्तुति ✔
(3) स्मृति
(4) आराम

Q.149 रात का तिमिर धीरे-धीरे समाप्त हो रहा था।
वाक्य में प्रयुक्त तिमिर शब्द का विलोम क्या है।

(1) अपर्णा
(2) वसुधा
(3) दीप्ति
(4) आलोक ✔

Q.150 दिए गए वाक्य के किस भाग में त्रुटि है?
पुरातत्वविदों ने जान्हवी के किनारे पाए गए अवशेषों से प्राचीन सभ्यता की झलक पाई।

(1) सभ्यता
(2) अवशेषों
(3) **जान्हवी ✔**
(4) पुरातत्वविदों

Q.151

दिए गए गद्यांश के आधार पर पूछे गए प्रश्न का उत्तर दीजिए।
उपभोक्तावाद ने जीवन के हर क्षेत्र को प्रभावित किया है यहाँ तक की शिक्षा, संस्कृति, सामाजिक और पारिवारिक संबंध भी इसके दायरे में आ गए हैं। उपभोक्तावाद की शुरुआत का श्रेय प्राय: संयुक्त राज्य अमेरिका को दिया जाता है। यह माना जाता है कि अमेरिकी समाज उपभोक्ता समाज है और अमेरिकी राजनीति उपभोक्तावाद को विश्व भर में फैलाने में सर्वाधिक सक्रिय रही है। उपभोक्तावाद के विस्तार को अमेरिकीकरण के तौर पर भी देखा जाता है, लेकिन उपभोक्तावाद को इस रूप में देखना उचित नहीं है। उपभोक्तावाद की प्रवृत्ति प्रत्येक देश में वहाँ की स्थितियों के अनुरूप विकसित हुई है लेकिन उसकी सामान्य विशेषताओं को प्राय: सभी जगह देखा जा सकता है। उपभोक्ता समाज श्रेणीबद्धता को निर्मित करता है। श्रेणीबद्धता उपभोक्ताओं की सामाजिक हैसियत को निर्धारित करती है। अपनी हैसियत बनाए रखने के लिए व्यक्ति ऐसी वस्तुओं और सेवाओं को हासिल करने का प्रयत्न करता है जो दूसरों के पास न हों। अपने को दूसरों से अलग और श्रेष्ठ बताना उपभोक्ता संस्कृति का आधारभूत नियम बन जाता है।

उपर्युक्त गद्यांश के आधार पर एक का सम्बंध 'विस्तार' से नहीं है?

(1) **असम्बद्ध ✔**
(2) अर्ज
(3) चौड़ाई
(4) उन्नति

Q.152

दिए गए गद्यांश के आधार पर पूछे गए प्रश्न का उत्तर दीजिए।
उपभोक्तावाद ने जीवन के हर क्षेत्र को प्रभावित किया है यहाँ तक की शिक्षा, संस्कृति, सामाजिक और पारिवारिक संबंध भी इसके दायरे में आ गए हैं। उपभोक्तावाद की शुरुआत का श्रेय प्राय: संयुक्त राज्य अमेरिका को दिया जाता है। यह माना जाता है कि अमेरिकी समाज उपभोक्ता समाज है और अमेरिकी राजनीति उपभोक्तावाद को विश्व भर में फैलाने में सर्वाधिक सक्रिय रही है। उपभोक्तावाद के विस्तार को अमेरिकीकरण के तौर पर भी देखा जाता है, लेकिन उपभोक्तावाद को इस रूप में देखना उचित नहीं है। उपभोक्तावाद की प्रवृत्ति प्रत्येक देश में वहाँ की स्थितियों के अनुरूप विकसित हुई है लेकिन उसकी सामान्य विशेषताओं को प्राय: सभी जगह देखा जा सकता है। उपभोक्ता समाज श्रेणीबद्धता को निर्मित करता है। श्रेणीबद्धता उपभोक्ताओं की सामाजिक हैसियत को निर्धारित करती है। अपनी हैसियत बनाए रखने के लिए व्यक्ति ऐसी वस्तुओं और सेवाओं को हासिल करने का प्रयत्न करता है जो दूसरों के पास न हों। अपने को दूसरों से अलग और श्रेष्ठ बताना उपभोक्ता संस्कृति का आधारभूत नियम बन जाता है।

उपर्युक्त गद्यांश का केन्द्रीय विषय क्या है?

(1) अमेरिकीकरण और बाजारवाद
(2) सांस्कृतिक साम्राज्यवाद और अमेरिका
(3) राजनीति और उपभोक्तावाद
(4) **उपभोक्तावाद के विविध आयाम ✔**

QuickSarkari.com | WhatsApp Channel | Telegram: t.me/quick_sarkari

Q.153

दिए गए गद्यांश के आधार पर पूछे गए प्रश्न का उत्तर दीजिए।
उपभोक्तावाद ने जीवन के हर क्षेत्र को प्रभावित किया है यहाँ तक की शिक्षा, संस्कृति, सामाजिक और पारिवारिक संबंध भी इसके दायरे में आ गए हैं। उपभोक्तावाद की शुरुआत का श्रेय प्राय: संयुक्त राज्य अमेरिका को दिया जाता है। यह माना जाता है कि अमेरिकी समाज उपभोक्ता समाज है और अमेरिकी राजनीति उपभोक्तावाद को विश्व भर में फैलाने में सर्वाधिक सक्रिय रही है। उपभोक्तावाद के विस्तार को अमेरिकीकरण के तौर पर भी देखा जाता है, लेकिन उपभोक्तावाद को इस रूप में देखना उचित नहीं है। उपभोक्तावाद की प्रवृत्ति प्रत्येक देश में वहाँ की स्थितियों के अनुरूप विकसित हुई है लेकिन उसकी सामान्य विशेषताओं को प्राय: सभी जगह देखा जा सकता है। उपभोक्ता समाज श्रेणीबद्धता को निर्मित करता है। श्रेणीबद्धता उपभोक्ताओं की सामाजिक हैसियत को निर्धारित करती है। अपनी हैसियत बनाए रखने के लिए व्यक्ति ऐसी वस्तुओं और सेवाओं को हासिल करने का प्रयत्न करता है जो दूसरों के पास न हों। अपने को दूसरों से अलग और श्रेष्ठ बताना उपभोक्ता संस्कृति का आधारभूत नियम बन जाता है।

उपर्युक्त गद्यांश के आधार पर 'प्रवृत्ति' का विलोम क्या होगा?

(1) प्रवंचक
(2) **निवृत्ति ✔**
(3) प्रमादी
(4) प्रमुदित

Q.154

दिए गए गद्यांश के आधार पर पूछे गए प्रश्न का उत्तर दीजिए।
उपभोक्तावाद ने जीवन के हर क्षेत्र को प्रभावित किया है यहाँ तक की शिक्षा, संस्कृति, सामाजिक और पारिवारिक संबंध भी इसके दायरे में आ गए हैं। उपभोक्तावाद की शुरुआत का श्रेय प्राय: संयुक्त राज्य अमेरिका को दिया जाता है। यह माना जाता है कि अमेरिकी समाज उपभोक्ता समाज है और अमेरिकी राजनीति उपभोक्तावाद को विश्व भर में फैलाने में सर्वाधिक सक्रिय रही है। उपभोक्तावाद के विस्तार को अमेरिकीकरण के तौर पर भी देखा जाता है, लेकिन उपभोक्तावाद को इस रूप में देखना उचित नहीं है। उपभोक्तावाद की प्रवृत्ति प्रत्येक देश में वहाँ की स्थितियों के अनुरूप विकसित हुई है लेकिन उसकी सामान्य विशेषताओं को प्राय: सभी जगह देखा जा सकता है। उपभोक्ता समाज श्रेणीबद्धता को निर्मित करता है। श्रेणीबद्धता उपभोक्ताओं की सामाजिक हैसियत को निर्धारित करती है। अपनी हैसियत बनाए रखने के लिए व्यक्ति ऐसी वस्तुओं और सेवाओं को हासिल करने का प्रयत्न करता है जो दूसरों के पास न हों। अपने को दूसरों से अलग और श्रेष्ठ बताना उपभोक्ता संस्कृति का आधारभूत नियम बन जाता है।

किसकी प्रवृत्ति प्रत्येक देश में वहाँ की स्थितियों के अनुरूप विकसित होती है?

(1) अनुभववाद की|
(2) परिवारवाद की|
(3) सफलता की|
(4) **उपभोक्तावाद की | ✔**

Q.155

दिए गए गद्यांश के आधार पर पूछे गए प्रश्न का उत्तर दीजिए।
उपभोक्तावाद ने जीवन के हर क्षेत्र को प्रभावित किया है यहाँ तक की शिक्षा, संस्कृति, सामाजिक और पारिवारिक संबंध भी इसके दायरे में आ गए हैं। उपभोक्तावाद की शुरुआत का श्रेय प्राय: संयुक्त राज्य अमेरिका को दिया जाता है। यह माना जाता है कि अमेरिकी समाज उपभोक्ता समाज है और अमेरिकी राजनीति उपभोक्तावाद को विश्व भर में फैलाने में सर्वाधिक सक्रिय रही है। उपभोक्तावाद के विस्तार को अमेरिकीकरण के तौर पर भी देखा जाता है, लेकिन उपभोक्तावाद को इस रूप में देखना उचित नहीं है। उपभोक्तावाद की प्रवृत्ति प्रत्येक देश में वहाँ की स्थितियों के अनुरूप विकसित हुई है लेकिन उसकी सामान्य विशेषताओं को प्राय: सभी जगह देखा जा सकता है। उपभोक्ता समाज श्रेणीबद्धता को निर्मित करता है। श्रेणीबद्धता उपभोक्ताओं की सामाजिक हैसियत को निर्धारित करती है। अपनी हैसियत बनाए रखने के लिए व्यक्ति ऐसी वस्तुओं और सेवाओं को हासिल करने का प्रयत्न करता है जो दूसरों के पास न हों। अपने को दूसरों से अलग और श्रेष्ठ बताना उपभोक्ता संस्कृति का आधारभूत नियम बन जाता है।

उपभोक्तावाद की शुरुआत किस देश से हुई?

(1) भारत
(2) **अमेरिका ✔**
(3) रूस
(4) जापान

Q.156

दिए गए गद्यांश के आधार पर पूछे गए प्रश्नों का उत्तर दीजिए- स्मृति एक ऐसा अनुभव है जो अपने समय के यथार्थ को हमारा आज का यथार्थ बनाती है। आज के मूल्यों से टकरा कर एक मोहभंग का अनुभव रचती है। हिन्दी कहानी की वयस्क हो गई यात्रा में कितने ही पड़ाव हैं जिनकी स्मृति हमें आज की भागम- भाग से निकल कर कुछ सुस्ता लेने का मोह जगाती है। लेकिन 'रेणु' की स्मृति आज के लगभग हर यथार्थ को अपदस्थ करती हुई निस्संकोच एक मोहभंग की मन:स्थिति निर्मित करती है। इन्सान के अतीत को उसके भविष्य से अलग करके देखने की कला अभी आविष्कृत नहीं हुई है। 'रेणु' के गाँव, उनके मृदंगिया और हीरामन हमारे लिए एक स्मृति मात्र नहीं हैं। आज की भागमभाग, चीजों की दौड़ और हर चीज की वासना यानी जो कुछ भी जितना ज़्यादा है, उस चीज की उतनी ही वासना और अधिक मन दु:खाती है, जब हीरामन और मृदंगिया सरीखे सामने आते हैं। यही स्मृति हमारे आज के यथार्थ को अतिरिक्त क्रूरता भी देती है और एक आभास रचती है अपूर्णता का। उनकी स्मृति से आज के बाजार की व्यर्थता और क्रूर हो उठती है।

प्रस्तुत गद्यांश का उचित शीर्षक क्या होगा?

(1) विज्ञान के आविष्कार
(2) भारतीय किसान
(3) सूचना और प्रौद्योगिकी
(4) **स्मृति और यथार्थ ✔**

Q.157

दिए गए गद्यांश के आधार पर पूछे गए प्रश्नों का उत्तर दीजिए- स्मृति एक ऐसा अनुभव है जो अपने समय के यथार्थ को हमारा आज का यथार्थ बनाती है। आज के मूल्यों से टकरा कर एक मोहभंग का अनुभव रचती है। हिन्दी कहानी की वयस्क हो गई यात्रा में कितने ही पड़ाव हैं जिनकी स्मृति हमें आज की भागम- भाग से निकल कर कुछ सुस्ता लेने का मोह जगाती है। लेकिन 'रेणु' की स्मृति आज के लगभग हर यथार्थ को अपदस्थ करती हुई निस्संकोच एक मोहभंग की मन:स्थिति निर्मित करती है। इन्सान के अतीत को उसके भविष्य से अलग करके देखने की कला अभी आविष्कृत नहीं हुई है। 'रेणु' के गाँव, उनके मृदंगिया और हीरामन हमारे लिए एक स्मृति मात्र नहीं हैं। आज की भागमभाग, चीजों की दौड़ और हर चीज की वासना यानी जो कुछ भी जितना ज़्यादा है, उस चीज की उतनी ही वासना और अधिक मन दु:खाती है, जब हीरामन और मृदंगिया सरीखे सामने आते हैं। यही स्मृति हमारे आज के यथार्थ को अतिरिक्त क्रूरता भी देती है और एक आभास रचती है अपूर्णता का। उनकी स्मृति से आज के बाजार की व्यर्थता और क्रूर हो उठती है।

वह क्या है जो समय के यथार्थ को हमारा आज का यथार्थ बनाती है?

(1) स्मृति ✔
(2) प्रेम
(3) भविष्य
(4) वर्तमान

Q.158

दिए गए गद्यांश के आधार पर पूछे गए प्रश्नों का उत्तर दीजिए- स्मृति एक ऐसा अनुभव है जो अपने समय के यथार्थ को हमारा आज का यथार्थ बनाती है। आज के मूल्यों से टकरा कर एक मोहभंग का अनुभव रचती है। हिन्दी कहानी की वयस्क हो गई यात्रा में कितने ही पड़ाव हैं जिनकी स्मृति हमें आज की भागम- भाग से निकल कर कुछ सुस्ता लेने का मोह जगाती है। लेकिन 'रेणु' की स्मृति आज के लगभग हर यथार्थ को अपदस्थ करती हुई निस्संकोच एक मोहभंग की मन:स्थिति निर्मित करती है। इन्सान के अतीत को उसके भविष्य से अलग करके देखने की कला अभी आविष्कृत नहीं हुई है। 'रेणु' के गाँव, उनके मृदंगिया और हीरामन हमारे लिए एक स्मृति मात्र नहीं हैं। आज की भागमभाग, चीजों की दौड़ और हर चीज की वासना यानी जो कुछ भी जितना ज़्यादा है, उस चीज की उतनी ही वासना और अधिक मन दु:खाती है, जब हीरामन और मृदंगिया सरीखे सामने आते हैं। यही स्मृति हमारे आज के यथार्थ को अतिरिक्त क्रूरता भी देती है और एक आभास रचती है अपूर्णता का। उनकी स्मृति से आज के बाजार की व्यर्थता और क्रूर हो उठती है।

निम्नलिखित में से 'स्मृति' का पर्यायवाची शब्द क्या है?

(1) मिथक
(2) याद ✔
(3) सत्य
(4) मित्र

Q.159

दिए गए गद्यांश के आधार पर पूछे गए प्रश्नों का उत्तर दीजिए- स्मृति एक ऐसा अनुभव है जो अपने समय के यथार्थ को हमारा आज का यथार्थ बनाती है। आज के मूल्यों से टकरा कर एक मोहभंग का अनुभव रचती है। हिन्दी कहानी की वयस्क हो गई यात्रा में कितने ही पड़ाव हैं जिनकी स्मृति हमें आज की भागम- भाग से निकल कर कुछ सुस्ता लेने का मोह जगाती है। लेकिन 'रेणु' की स्मृति आज के लगभग हर यथार्थ को अपदस्थ करती हुई निस्संकोच एक मोहभंग की मन:स्थिति निर्मित करती है। इन्सान के अतीत को उसके भविष्य से अलग करके देखने की कला अभी आविष्कृत नहीं हुई है। 'रेणु' के गाँव, उनके मृदंगिया और हीरामन हमारे लिए एक स्मृति मात्र नहीं हैं। आज की भागमभाग, चीजों की दौड़ और हर चीज की वासना यानी जो कुछ भी जितना ज़्यादा है, उस चीज की उतनी ही वासना और अधिक मन दु:खाती है, जब हीरामन और मृदंगिया सरीखे सामने आते हैं। यही स्मृति हमारे आज के यथार्थ को अतिरिक्त क्रूरता भी देती है और एक आभास रचती है अपूर्णता का। उनकी स्मृति से आज के बाजार की व्यर्थता और क्रूर हो उठती है।

निम्नलिखित में से 'क्रूरता' का विलोम शब्द क्या होगा?

(1) दयालुता ✔

(2) कर्मचारी

(3) निर्दयी

(4) दुखी

Q.160

दिए गए गद्यांश के आधार पर पूछे गए प्रश्नों का उत्तर दीजिए- स्मृति एक ऐसा अनुभव है जो अपने समय के यथार्थ को हमारा आज का यथार्थ बनाती है। आज के मूल्यों से टकरा कर एक मोहभंग का अनुभव रचती है। हिन्दी कहानी की वयस्क हो गई यात्रा में कितने ही पड़ाव हैं जिनकी स्मृति हमें आज की भागम- भाग से निकल कर कुछ सुस्ता लेने का मोह जगाती है। लेकिन 'रेणु' की स्मृति आज के लगभग हर यथार्थ को अपदस्थ करती हुई निस्संकोच एक मोहभंग की मन:स्थिति निर्मित करती है। इन्सान के अतीत को उसके भविष्य से अलग करके देखने की कला अभी आविष्कृत नहीं हुई है। 'रेणु' के गाँव, उनके मृदंगिया और हीरामन हमारे लिए एक स्मृति मात्र नहीं हैं। आज की भागमभाग, चीजों की दौड़ और हर चीज की वासना यानी जो कुछ भी जितना ज़्यादा है, उस चीज की उतनी ही वासना और अधिक मन दु:खाती है, जब हीरामन और मृदंगिया सरीखे सामने आते हैं। यही स्मृति हमारे आज के यथार्थ को अतिरिक्त क्रूरता भी देती है और एक आभास रचती है अपूर्णता का। उनकी स्मृति से आज के बाजार की व्यर्थता और क्रूर हो उठती है।

प्रस्तुत गद्यांश का केन्द्रीय विषय क्या है?

(1) आर्थिक असमानता की समस्या

(2) आधुनिक समाज में विज्ञान की प्रगति

(3) अतीत की स्मृतियों के माध्यम से वर्तमान यथार्थ का मूल्यांकन ✔

(4) ग्रामीण जीवन की सुंदरता

English Language and Comprehension

Q.161 Choose the most appropriate option to complete the direct speech of the sentence.
The teacher asked the student how many students were participating from his class.
The _____ student, "How many students _____ class?"

(1) teacher said to the / are participating from your ✔

(2) teacher asked / are participating in their

(3) teacher told / were participating from my

(4) teacher says to the / have been participating in your

Q.162 Complete the following sentence by choosing the correct option.
There was ___ engineer nearby who volunteered as ___ mentor for local robotics students.

(1) an, the
(2) **an, a ✔**
(3) the, a
(4) a, a

Q.163 In the following question, you are required to fill in the blanks by choosing the option that best completes the sentence.
Despite attending multiple revision sessions and receiving personalised guidance from her mentor, she ____ could not grasp the underlying concept clearly, and the final explanation provided by the panel has ____ failed to resolve her confusion.

(1) seldom; still
(2) hardly; already
(3) **still; also ✔**
(4) already; rarely

Q.164 Parts of a sentence are given below in jumbled order. Arrange the parts in the correct order to form a meaningful and coherent sentence.
A. to India for such
B. while I understand
C. procedures is a huge burden
D. heart transplants are complex
E. and expensive, travelling

(1) AEDBC
(2) **BDEAC ✔**
(3) BACED
(4) CADBE

Q.165 Choose the correct passive voice of the following sentence.
You may give away the material without using it.

(1) **The material may be given away without being used. ✔**
(2) The material may be given away without use.
(3) The material might be given away without using it.
(4) The material might have been given away without being used.

Q.166 Select the most appropriate option to fill in the blank.
She _____ a piece of cake to check whether _____ or not.

(1) has been eating / it tasted fresh
(2) had eaten / it tastes fresh
(3) **is eating / it tastes fresh ✔**
(4) eats / it tasted fresh

QuickSarkari.com | WhatsApp Channel | Telegram: t.me/quick_sarkari

Q.167 In the given question, a statement is divided into different segments. Rearrange all the segments to form a meaningful sentence.
primarily to undertake an extensive exploration of the city (A) / he travelled to Jaipur (B) / the renowned astronomical edifice (C) / and to behold (D) / the illustrious Jantar Mantar complex (E)

(1) B–C–A–D–E
(2) C–E–B–A–D
(3) B–A–D–C–E ✔
(4) A–B–D–C–E

Q.168 Select the option that can be used as a one-word substitute for the underlined group of words.
A requirement that is so fundamentally necessary or crucial that the overall system, process, or objective would fail to function effectively in its absence

(1) Indispensable ✔
(2) Contingent
(3) Supplementary
(4) Peripheral

Q.169 Choose the correct form of active voice for the following sentence from the options.
The final report was submitted by the team before the deadline yesterday afternoon.

(1) The team submitted the final report before the deadline yesterday afternoon. ✔
(2) The team has submitted the final report before the deadline yesterday afternoon.
(3) The team will submit the final report before the deadline yesterday afternoon.
(4) The team had submitted the final report before the deadline yesterday afternoon.

Q.170 Identify the error in the sentence and select the correct option.
In its final judgment, the International Tribunal proclaimed the state guilty of violating multiple conventions on the treatment of displaced civilians.

(1) In its final judgment, the International Tribunal announced the state guilty of violating numerous conventions on the treatment of displaced civilians.
(2) In its final judgment, the International Tribunal proclaimed the state guilty for violating multiple conventions on the treatment of displaced civilians.
(3) In its final judgment, the International Tribunal pronounced the state guilty for violating several conventions on the treatment of displaced civilians.
(4) In its final judgment, the International Tribunal adjudged the state guilty of violating multiple conventions on the treatment of displaced civilians. ✔

Q.171 Fill in the blanks by choosing the option that best completes the sentence.
During the unexpected commotion in the barn, he impulsively hurled ___ stone at the cow, while his sister, in an equally startled reaction, flung ___ stick toward the pig, causing the animals to scatter in confusion.

(1) a , an
(2) an , an
(3) a , a ✔
(4) an , a

Q.172 Complete the given sentence by choosing the correct option.
The analyst offered insights _____ new guidelines and delivered a cogent report _____ performance.

(1) pursuant to; regarding ✔
(2) before; with
(3) amidst; by
(4) beyond; upon

Q.173 Select the option that can be used as a one-word substitute for the given group of words/phrase.
The scientist's discovery was dismissed as a statement or idea contrary to accepted opinion.

(1) axiom
(2) paradox
(3) heresy ✔
(4) hypothesis

Q.174 Select the option that can be used as a one-word substitute for the underlined group of words.
She avoided speaking in large groups because of her shyness often made her extremely uncomfortable.

(1) diffidence ✔
(2) vanity
(3) fortitude
(4) apathy

Q.175 Complete the given sentence by choosing the correct option.
If the witnesses ..... earlier, the court could have reached a verdict sooner.

(1) had testified ✔
(2) were testifying
(3) testified
(4) have testified

Q.176 Out of the four alternatives, choose the one that can be used as a substitute for the bracketed word segment.
The teacher warned the students against showing (fear or hatred of foreigners)
behaviour during the exchange programme.

(1) hostile
(2) prejudiced
(3) xenophobic ✔
(4) intolerant

Q.177 Given below are four jumbled sentences. Select the option that gives their correct logical sequence.
A. This overflowing water becomes powerful enough to wash away their habitats.
B. However, after heavy rains, the soil becomes saturated.
C. When the ground can no longer retain excess rainwater, flooding occurs.
D. Earthworms primarily live in soil, which serves as their natural habitat

(1) ABCD
(2) DBCA ✔
(3) ACDB
(4) CDAB

QuickSarkari.com | WhatsApp Channel | Telegram: t.me/quick_sarkari

Q.178 Select the correct form of the future tense to fill in the blank and complete the given sentence.
By next summer, the team _____ in the desert for over six months, gathering soil samples and monitoring temperature variations for their climate project.

(1) will have worked
(2) will be working
(3) will work
(4) will have been working ✔

Q.179 In the given question, a statement is divided into different segments. The first is fixed, rearrange the other segments to form a meaningful sentence.
She was well known (Fixed) / for having clandestinely concealed (A) / the ornate heirloom jewellery (B) / beneath the secluded expanse of the backyard soil (C) / throughout the entire neighbourhood and its adjoining vicinity (D)

(1) She was well known / A–B–C–D
(2) She was well known / A–C–B–D
(3) She was well known / D–B–A–C
(4) She was well known / D–A–B–C ✔

Q.180 The following sentence is given in indirect speech. Choose the correct sentence that expresses the same meaning in direct speech.
Arjun said that he had been waiting for his friend for an hour.

(1) Arjun said, "I had been waiting for my friend for an hour." ✔
(2) Arjun said, "He had been waiting for his friend for an hour."
(3) Arjun said, "I have been waiting for my friend for an hour."
(4) Arjun said, "He has been waiting for his friend for an hour."

Q.181 In the following question, a statement has been given in brackets. You are required to replace the statement with the correct proverb given in the options.
Despite facing several setbacks while preparing for the civil service examination, Ananya continued studying a little every day. Over time, she cleared the exam successfully, proving that (consistent small efforts can overcome great difficulties).

(1) where there's a will, there's a way
(2) fortune favours the bold
(3) little strokes fell great oaks ✔
(4) no pain, no gain

Q.182 Which of the options best represents the opposite of 'penitent' as used in the following sentence?
The penitent criminal finally admitted his wrongdoing in court.

(1) contrite
(2) callous ✔
(3) rueful
(4) apologetic

Q.183 Choose the correct antonym for the underlined word from the options.
The board sensed that an imminent financial crisis required immediate strategic intervention and planning.

(1) Eminent
(2) Looming
(3) Pending
(4) **Remote ✔**

Q.184 Select the misspelt word from the underlined words in the given sentence.
Her autobiography provides an inttimate look into the turbulent years that defined her career as a politician.

(1) turbulent
(2) autobiography
(3) **inttimate ✔**
(4) defined

Q.185 Select the most appropriate option that can correctly substitute the underlined part of the given sentence.
I don't think that prices will go up but, be the real token, I don't see them going down either.

(1) by the small token
(2) **by the same token ✔**
(3) by the large amount
(4) by the little amount

Q.186 Select the most appropriate antonym of the highlighted word in the following sentence.
The architect dismissed the initial design as hideous, arguing that its chaotic proportions and jarring colour palette undermined the aesthetic integrity required for such a culturally significant monument.

(1) **Alluring ✔**
(2) Repulsive
(3) Grotesque
(4) Unsightly

Q.187 Choose the most appropriate option to replace the underlined words in the sentence.
The middle-aged lady, fond of seeking a better job, left her comfortable work- from-home part-time position, believing she would find a better-paying opportunity, but she soon regretted it, realizing she had given up a sure income for a risky chance at more.

(1) that a watched kettle never boils
(2) that empty vessels make the most noise
(3) **that a bird in the hand is worth two in the bush ✔**
(4) that fortune favours the bold

Q.188 Recognise the spelling error in the following sentence by choosing the appropriate option.
Their aggresive argument, basically rooted in misunderstanding, escalated quickly and disrupted the entire team meeting.

(1) escalated
(2) argument
(3) **aggresive ✔**
(4) disrupted

Q.189 Substitute the correct proverb for the underlined word segment by choosing from the following options.
He finally submitted his college application a week after the deadline(,/;) as it's better to do something, even if it's delayed.

(1) practice makes perfect
(2) Rome wasn't built in a day
(3) honesty is the best policy
(4) **better late than never ✔**

Q.190 Choose the antonym of the underlined word in the following sentence.
The CEO tried to assuage the investors' fears following the unexpected dip in the company's stock value.

(1) comfort
(2) mitigate
(3) **intensify ✔**
(4) mollify

Q.191

Read the passage and answer the questions that follow:
Migration stands as one of the defining phenomena of the twenty-first century, shaping not only economies and demographics but also the moral and cultural fabric of societies. With more than 280 million individuals living outside their countries of origin, migration today represents both an act of necessity and a pursuit of aspiration. People migrate for myriad reasons—economic opportunity, education, political refuge, or environmental displacement. Yet beyond these practical motives lies a deeper human story: the constant negotiation of identity in an increasingly interconnected world.
In host societies, migrants often encounter a dual reality. On one hand, they are celebrated as symbols of diversity and globalization; on the other, they face structural exclusion and cultural misunderstanding. Governments frequently emphasize assimilation, expecting migrants to adopt dominant linguistic and cultural norms. Such expectations, while seemingly integrative, can erase difference and suppress the hybrid identities that emerge from cross-cultural encounters. For many migrants and their descendants, belonging becomes an ongoing process rather than a settled fact.
Simultaneously, migration reshapes the very concept of nationhood. Traditional ideas of citizenship—rooted in geography, ethnicity, and singular loyalty—are increasingly challenged by transnational identities that transcend borders. Technology and global communication networks further strengthen these ties, allowing individuals to remain connected to multiple communities across continents.

What is the most suitable title for the passage?

(1) The Economic Impacts of Migration
(2) **Global Migration and the Search for Identity ✔**
(3) The Politics of Refuge in Digital Age
(4) Importance of Borders and Barriers

Q.192

Read the passage and answer the questions that follow:
Migration stands as one of the defining phenomena of the twenty-first century, shaping not only economies and demographics but also the moral and cultural fabric of societies. With more than 280 million individuals living outside their countries of origin, migration today represents both an act of necessity and a pursuit of aspiration. People migrate for myriad reasons—economic opportunity, education, political refuge, or environmental displacement. Yet beyond these practical motives lies a deeper human story: the constant negotiation of identity in an increasingly interconnected world.
In host societies, migrants often encounter a dual reality. On one hand, they are celebrated as symbols of diversity and globalization; on the other, they face structural exclusion and cultural misunderstanding. Governments frequently emphasize assimilation, expecting migrants to adopt dominant linguistic and cultural norms. Such expectations, while seemingly integrative, can erase difference and suppress the hybrid identities that emerge from cross-cultural encounters. For many migrants and their descendants, belonging becomes an ongoing process rather than a settled fact.
Simultaneously, migration reshapes the very concept of nationhood. Traditional ideas of citizenship—rooted in geography, ethnicity, and singular loyalty—are increasingly challenged by transnational identities that transcend borders. Technology and global communication networks further strengthen these ties, allowing individuals to remain connected to multiple communities across continents.

What is the central theme of the passage?

(1) Migration as an economic necessity in the modern world
(2) The end of globalization and the beginning of industrialisation
(3) The political control of borders in today's times
(4) **The cultural, social, and psychological dimensions of migration ✔**

QuickSarkari.com | WhatsApp Channel | Telegram: t.me/quick_sarkari

Q.193

Read the passage and answer the questions that follow:
Migration stands as one of the defining phenomena of the twenty-first century, shaping not only economies and demographics but also the moral and cultural fabric of societies. With more than 280 million individuals living outside their countries of origin, migration today represents both an act of necessity and a pursuit of aspiration. People migrate for myriad reasons—economic opportunity, education, political refuge, or environmental displacement. Yet beyond these practical motives lies a deeper human story: the constant negotiation of identity in an increasingly interconnected world.
In host societies, migrants often encounter a dual reality. On one hand, they are celebrated as symbols of diversity and globalization; on the other, they face structural exclusion and cultural misunderstanding. Governments frequently emphasize assimilation, expecting migrants to adopt dominant linguistic and cultural norms. Such expectations, while seemingly integrative, can erase difference and suppress the hybrid identities that emerge from cross-cultural encounters. For many migrants and their descendants, belonging becomes an ongoing process rather than a settled fact.
Simultaneously, migration reshapes the very concept of nationhood. Traditional ideas of citizenship—rooted in geography, ethnicity, and singular loyalty—are increasingly challenged by transnational identities that transcend borders. Technology and global communication networks further strengthen these ties, allowing individuals to remain connected to multiple communities across continents.

Which fact is explicitly stated in the passage?

(1) Most migrants return home after ten years.
(2) Technology limits cultural exchange.
(3) **Over 280 million people live outside their countries of origin. ✔**
(4) Migration has decreased in recent years.

Quick Sarkari

Q.194

Read the passage and answer the questions that follow:
Migration stands as one of the defining phenomena of the twenty-first century, shaping not only economies and demographics but also the moral and cultural fabric of societies. With more than 280 million individuals living outside their countries of origin, migration today represents both an act of necessity and a pursuit of aspiration. People migrate for myriad reasons—economic opportunity, education, political refuge, or environmental displacement. Yet beyond these practical motives lies a deeper human story: the constant negotiation of identity in an increasingly interconnected world.
In host societies, migrants often encounter a dual reality. On one hand, they are celebrated as symbols of diversity and globalization; on the other, they face structural exclusion and cultural misunderstanding. Governments frequently emphasize assimilation, expecting migrants to adopt dominant linguistic and cultural norms. Such expectations, while seemingly integrative, can erase difference and suppress the hybrid identities that emerge from cross-cultural encounters. For many migrants and their descendants, belonging becomes an ongoing process rather than a settled fact.
Simultaneously, migration reshapes the very concept of nationhood. Traditional ideas of citizenship—rooted in geography, ethnicity, and singular loyalty—are increasingly challenged by transnational identities that transcend borders. Technology and global communication networks further strengthen these ties, allowing individuals to remain connected to multiple communities across continents.

The tone of the passage can best be described as:

(1) optimistic and celebratory
(2) **analytical and empathetic ✔**
(3) detached and indifferent
(4) ironic and dismissive

QuickSarkari.com | WhatsApp Channel | Telegram: t.me/quick_sarkari

Q.195

Read the passage and answer the questions that follow:
Migration stands as one of the defining phenomena of the twenty-first century, shaping not only economies and demographics but also the moral and cultural fabric of societies. With more than 280 million individuals living outside their countries of origin, migration today represents both an act of necessity and a pursuit of aspiration. People migrate for myriad reasons—economic opportunity, education, political refuge, or environmental displacement. Yet beyond these practical motives lies a deeper human story: the constant negotiation of identity in an increasingly interconnected world.
In host societies, migrants often encounter a dual reality. On one hand, they are celebrated as symbols of diversity and globalization; on the other, they face structural exclusion and cultural misunderstanding. Governments frequently emphasize assimilation, expecting migrants to adopt dominant linguistic and cultural norms. Such expectations, while seemingly integrative, can erase difference and suppress the hybrid identities that emerge from cross-cultural encounters. For many migrants and their descendants, belonging becomes an ongoing process rather than a settled fact.
Simultaneously, migration reshapes the very concept of nationhood. Traditional ideas of citizenship—rooted in geography, ethnicity, and singular loyalty—are increasingly challenged by transnational identities that transcend borders. Technology and global communication networks further strengthen these ties, allowing individuals to remain connected to multiple communities across continents.

Which inference can be drawn from the passage?

(1) Migration challenges and transforms traditional notions of national identity. ✔

(2) Identity remains fixed regardless of movement.

(3) Migrants should abandon their native cultures to integrate.

(4) Global migration will soon decline due to technology.

QuickSarkari.com | WhatsApp Channel | Telegram: t.me/quick_sarkari

Q.196

Read the passage carefully and answer the questions that are given below.
Inclusive education is an approach that ensures all children, including those with disabilities, learning difficulties, or language barriers, study together in the same classrooms. It promotes equality, acceptance, and mutual respect among learners. The concept may seem simple, yet it is intricate in practice because it demands adjustments in teaching methods, classroom structures, and educational materials to cater to the diverse needs of every student. It also encourages empathy and cooperation, preparing students for life in a diverse society. However, achieving true inclusion remains a global challenge.
Many children with disabilities are still denied education due to inaccessible infrastructure, untrained teachers, or deep-rooted social stigma. Policymakers often overlook disability while designing education systems, resulting in a gap between what is promised and what is delivered. This gap continues to marginalise millions of children, limiting their future opportunities. Organisations like UNICEF actively promote inclusive education by supporting governments in policy reforms, teacher training, and awareness campaigns. They emphasise the need to align national education systems with the Convention on the Rights of Persons with Disabilities. Inclusive education goes beyond access — it aims to ensure participation, equity, and learning for all. When education becomes truly inclusive, every child is empowered to learn, contribute, and thrive in society.

Select an appropriate title for this passage from the given options.

(1) Inclusive Education: Limiting Access for Disabled Children
(2) Inclusive Education: Helping Every Child to Adjust and Survive
(3) **Inclusive Education: Empowering Every Child to Learn and Thrive ✔**
(4) Inclusive Education: Empowering Every Child to Study Separately

QuickSarkari.com | WhatsApp Channel | Telegram: t.me/quick_sarkari

Q.197

Read the passage carefully and answer the questions that are given below.
Inclusive education is an approach that ensures all children, including those with disabilities, learning difficulties, or language barriers, study together in the same classrooms. It promotes equality, acceptance, and mutual respect among learners. The concept may seem simple, yet it is intricate in practice because it demands adjustments in teaching methods, classroom structures, and educational materials to cater to the diverse needs of every student. It also encourages empathy and cooperation, preparing students for life in a diverse society. However, achieving true inclusion remains a global challenge.
Many children with disabilities are still denied education due to inaccessible infrastructure, untrained teachers, or deep-rooted social stigma. Policymakers often overlook disability while designing education systems, resulting in a gap between what is promised and what is delivered. This gap continues to marginalise millions of children, limiting their future opportunities. Organisations like UNICEF actively promote inclusive education by supporting governments in policy reforms, teacher training, and awareness campaigns. They emphasise the need to align national education systems with the Convention on the Rights of Persons with Disabilities. Inclusive education goes beyond access — it aims to ensure participation, equity, and learning for all. When education becomes truly inclusive, every child is empowered to learn, contribute, and thrive in society.

What is the main idea of the passage?

(1) The passage focuses upon ensuring quality education for children while keeping special needs learners in separate setups.

(2) The passage focuses upon promoting equal learning opportunities for all children through inclusive education. ✔

(3) The passage focuses upon enhancing teacher training but ignoring the importance of acceptance and cooperation among learners.

(4) The passage focuses upon emphasising inclusive education only for differently-abled students rather than for every learner.

QuickSarkari.com | WhatsApp Channel | Telegram: t.me/quick_sarkari

Q.198

Read the passage carefully and answer the questions that are given below.
Inclusive education is an approach that ensures all children, including those with disabilities, learning difficulties, or language barriers, study together in the same classrooms. It promotes equality, acceptance, and mutual respect among learners. The concept may seem simple, yet it is intricate in practice because it demands adjustments in teaching methods, classroom structures, and educational materials to cater to the diverse needs of every student. It also encourages empathy and cooperation, preparing students for life in a diverse society. However, achieving true inclusion remains a global challenge.
Many children with disabilities are still denied education due to inaccessible infrastructure, untrained teachers, or deep-rooted social stigma. Policymakers often overlook disability while designing education systems, resulting in a gap between what is promised and what is delivered. This gap continues to marginalise millions of children, limiting their future opportunities. Organisations like UNICEF actively promote inclusive education by supporting governments in policy reforms, teacher training, and awareness campaigns. They emphasise the need to align national education systems with the Convention on the Rights of Persons with Disabilities. Inclusive education goes beyond access — it aims to ensure participation, equity, and learning for all. When education becomes truly inclusive, every child is empowered to learn, contribute, and thrive in society.

Identify the structure of the passage.

(1) Cause and Effect
(2) Narrative
(3) **Expository ✔**
(4) Descriptive

QuickSarkari.com | WhatsApp Channel | Telegram: t.me/quick_sarkari

Q.199

Read the passage carefully and answer the questions that are given below.
Inclusive education is an approach that ensures all children, including those with disabilities, learning difficulties, or language barriers, study together in the same classrooms. It promotes equality, acceptance, and mutual respect among learners. The concept may seem simple, yet it is intricate in practice because it demands adjustments in teaching methods, classroom structures, and educational materials to cater to the diverse needs of every student. It also encourages empathy and cooperation, preparing students for life in a diverse society. However, achieving true inclusion remains a global challenge.
Many children with disabilities are still denied education due to inaccessible infrastructure, untrained teachers, or deep-rooted social stigma. Policymakers often overlook disability while designing education systems, resulting in a gap between what is promised and what is delivered. This gap continues to marginalise millions of children, limiting their future opportunities. Organisations like UNICEF actively promote inclusive education by supporting governments in policy reforms, teacher training, and awareness campaigns. They emphasise the need to align national education systems with the Convention on the Rights of Persons with Disabilities. Inclusive education goes beyond access — it aims to ensure participation, equity, and learning for all. When education becomes truly inclusive, every child is empowered to learn, contribute, and thrive in society.

Identify the tone of the passage.

(1) Informative and encouraging ✔
(2) Informative and cautionary
(3) Analytical and argumentative
(4) Persuasive and emotional

QuickSarkari

Q.200

Read the passage carefully and answer the questions that are given below.
Inclusive education is an approach that ensures all children, including those with disabilities, learning difficulties, or language barriers, study together in the same classrooms. It promotes equality, acceptance, and mutual respect among learners. The concept may seem simple, yet it is intricate in practice because it demands adjustments in teaching methods, classroom structures, and educational materials to cater to the diverse needs of every student. It also encourages empathy and cooperation, preparing students for life in a diverse society. However, achieving true inclusion remains a global challenge.
Many children with disabilities are still denied education due to inaccessible infrastructure, untrained teachers, or deep-rooted social stigma. Policymakers often overlook disability while designing education systems, resulting in a gap between what is promised and what is delivered. This gap continues to marginalise millions of children, limiting their future opportunities. Organisations like UNICEF actively promote inclusive education by supporting governments in policy reforms, teacher training, and awareness campaigns. They emphasise the need to align national education systems with the Convention on the Rights of Persons with Disabilities. Inclusive education goes beyond access — it aims to ensure participation, equity, and learning for all. When education becomes truly inclusive, every child is empowered to learn, contribute, and thrive in society.

Select the correct antonym of the given word from the passage.
Simplified

(1) Intricate ✔
(2) Diverse
(3) Accessible
(4) Equal "

Answer Key / उत्तर कुंजी

1 1	**2** 4	**3** 1	**4** 1	**5** 4	**6** 1	**7** 1	**8** 3	**9** 1	**10** 1	**11** 3	**12** 2	**13** 4	**14** 4	**15** 3
16 3	**17** 2	**18** 2	**19** 1	**20** 3	**21** 2	**22** 2	**23** 2	**24** 3	**25** 2	**26** 2	**27** 3	**28** 2	**29** 2	**30** 1
31 1	**32** 2	**33** 1	**34** 2	**35** 1	**36** 4	**37** 2	**38** 3	**39** 3	**40** 1	**41** 4	**42** 2	**43** 1	**44** 2	**45** 1
46 2	**47** 3	**48** 3	**49** 3	**50** 4	**51** 2	**52** 4	**53** 2	**54** 3	**55** 3	**56** 1	**57** 3	**58** 4	**59** 2	**60** 2
61 3	**62** 4	**63** 2	**64** 2	**65** 1	**66** 3	**67** 1	**68** 1	**69** 1	**70** 4	**71** 2	**72** 1	**73** 3	**74** 3	**75** 3
76 3	**77** 3	**78** 4	**79** 1	**80** 1	**81** 3	**82** 2	**83** 1	**84** 2	**85** 2	**86** 3	**87** 2	**88** 3	**89** 2	**90** 1
91 3	**92** 3	**93** 4	**94** 1	**95** 3	**96** 3	**97** 3	**98** 2	**99** 4	**100** 2	**101** 4	**102** 2	**103** 2	**104** 4	**105** 2
106 1	**107** 3	**108** 4	**109** 3	**110** 4	**111** 2	**112** 4	**113** 1	**114** 2	**115** 2	**116** 2	**117** 2	**118** 3	**119** 1	**120** 3
121 3	**122** 4	**123** 1	**124** 4	**125** 2	**126** 1	**127** 2	**128** 3	**129** 2	**130** 3	**131** 3	**132** 3	**133** 3	**134** 3	**135** 2
136 4	**137** 4	**138** 2	**139** 1	**140** 4	**141** 1	**142** 4	**143** 1	**144** 1	**145** 3	**146** 1	**147** 2	**148** 2	**149** 4	**150** 3

151 1	**152** 4	**153** 2	**154** 4	**155** 2	**156** 4	**157** 1	**158** 2	**159** 1	**160** 3	**161** 1	**162** 2	**163** 3	**164** 2	**165** 1
166 3	**167** 3	**168** 1	**169** 1	**170** 4	**171** 3	**172** 1	**173** 3	**174** 1	**175** 1	**176** 3	**177** 2	**178** 4	**179** 4	**180** 1
181 3	**182** 2	**183** 4	**184** 3	**185** 2	**186** 1	**187** 3	**188** 3	**189** 4	**190** 3	**191** 2	**192** 4	**193** 3	**194** 2	**195** 1
196 3	**197** 2	**198** 3	**199** 1	**200** 1										

QuickSarkari

GOVT. OF NCT OF DELHI
Delhi Subordinate Services Selection Board
FC-18, Institutional Area, Karkardooma, Delhi – 110092.
www.dsssb.delhigovt.nic.in

Participant ID	[redacted]
Participant Name	[redacted]
Test Center Name	Aadarsh Pariksha Kendra CENTER A - Gate No 1 - Noida Sector 64
Test Date	28/02/2026
Test Time	9:00 AM - 11:00 AM
Subject	Naib Tehsildar

Section : **General Awareness**

Q.1 **Who co-founded the Theosophical Society and moved its headquarters to Adyar (Madras) in 1882?**

Ans
✔ 1. H. P. Blavatsky & H. S. Olcott
✘ 2. A. O. Hume
✘ 3. W. C. Bonnerjee
✘ 4. Annie Besant

Question ID : **4410091489833**
Option 1 ID : **4410095885369**
Option 2 ID : **4410095885371**
Option 3 ID : **4410095885372**
Option 4 ID : **4410095885370**

Q.2 **In October 2025, which of the following ministries notified the Information Technology (Intermediary Guidelines and Digital Media Ethics Code) Amendment Rules, 2025, to amend the Information Technology (Intermediary Guidelines and Digital Media Ethics Code) Rules, 2021, with the aim to tighten standards for intermediaries and digital platforms regarding "unlawful content"?**

Ans
✘ 1. Ministry of Statistics and Programme Implementation
✘ 2. Ministry of Communications
✘ 3. Ministry of Information and Broadcasting
✔ 4. Ministry of Electronics & Information Technology

Question ID : **4410091511717**
Option 1 ID : **4410095970948**
Option 2 ID : **4410095970945**
Option 3 ID : **4410095970946**
Option 4 ID : **4410095970947**

QuickSarkari.com | WhatsApp Channel | Telegram: t.me/quick_sarkari

Q.3 **Which of the following countries hosted the UEFA Women's Euro 2025 football tournament in July 2025?**

Ans
✔ 1. Switzerland
✘ 2. England
✘ 3. Germany
✘ 4. France

Question ID : **4410091496180**
Option 1 ID : **4410095910008**
Option 2 ID : **4410095910006**
Option 3 ID : **4410095910007**
Option 4 ID : **4410095910005**

Q.4 **Which mission, unveiled on 15 August 2025, was launched to strengthen India's multi-layer and indigenous air-defence system?**

Ans
✔ 1. Mission Sudarshan Chakra
✘ 2. Mission Garuda Net
✘ 3. Mission Akash Prime
✘ 4. Mission Brahmastra Air Defence

Question ID : **4410091496318**
Option 1 ID : **4410095910553**
Option 2 ID : **4410095910556**
Option 3 ID : **4410095910554**
Option 4 ID : **4410095910555**

Q.5 **Which of the following is NOT a recognised health system under AAYUSH?**

Ans
✘ 1. Homeopathy
✘ 2. Unani
✘ 3. Yoga
✔ 4. Saatwik

Question ID : **441009610821**
Option 1 ID : **4410092398404**
Option 2 ID : **4410092398402**
Option 3 ID : **4410092398401**
Option 4 ID : **4410092398403**

Q.6 **Which veteran actor premiered his directorial venture, *Tanvi the Great*, at the Cannes Film Festival 2025?**

Ans
✔ 1. Anupam Kher
✘ 2. Kamal Haasan
✘ 3. Ajay Devgn
✘ 4. Kay Kay Menon

Question ID : **4410091492641**
Option 1 ID : **4410095896265**
Option 2 ID : **4410095896267**
Option 3 ID : **4410095896266**
Option 4 ID : **4410095896268**

Quick Sarkari

Q.7 According to the revised norms of assistance to National Sports Federations (NSFs) from May 2025, what is the updated daily diet allowance for senior athletes?

Ans
✔ 1. ₹1,000
✘ 2. ₹690
✘ 3. ₹850
✘ 4. ₹750

Question ID : **4410091492824**
Option 1 ID : **4410095896977**
Option 2 ID : **4410095896980**
Option 3 ID : **4410095896978**
Option 4 ID : **4410095896979**

Q.8 Where did DRDO conduct maiden flight-tests of the Integrated Air Defence Weapon System on August 23, 2025?

Ans
✘ 1. Coast of Maharashtra
✘ 2. Coast of Tamil Nadu
✔ 3. Coast of Odisha
✘ 4. Coast of Gujarat

Question ID : **4410091499834**
Option 1 ID : **4410095924232**
Option 2 ID : **4410095924233**
Option 3 ID : **4410095924231**
Option 4 ID : **4410095924230**

Q.9 Who among the following is the Chairperson of the Microfinance Institutions Network (MFIN) India as of the end of July 2025?

Ans
✔ 1. Vineet Chattree
✘ 2. Rakesh Dubey
✘ 3. Vijay Mahajan
✘ 4. Samit Ghosh

Question ID : **4410091121170**
Option 1 ID : **4410094420566**
Option 2 ID : **4410094420565**
Option 3 ID : **4410094420563**
Option 4 ID : **4410094420564**

QuickSarkari.com | WhatsApp Channel | Telegram: t.me/quick_sarkari

Q.10 The eleventh edition of the Joint Military Exercise 'MITRA SHAKTI-2025' between India and Sri Lanka was held at which of the following places in November 2025?

Ans
✔ 1. Belagavi
✘ 2. Pune
✘ 3. Hyderabad
✘ 4. Coimbatore

Question ID : **4410091496300**
Option 1 ID : **4410095910482**
Option 2 ID : **4410095910481**
Option 3 ID : **4410095910484**
Option 4 ID : **4410095910483**

Q.11 The Vellore Mutiny happened in which year?

Ans
✘ 1. 1800
✘ 2. 1840
✔ 3. 1806
✘ 4. 1851

Question ID : **4410091489495**
Option 1 ID : **4410095884035**
Option 2 ID : **4410095884034**
Option 3 ID : **4410095884033**
Option 4 ID : **4410095884036**

Q.12 In May 2025, which of the following states of India has announced the establishment of the India's first "Quantum Valley Tech Park"?

Ans
✘ 1. Karnataka
✔ 2. Andhra Pradesh
✘ 3. Tamil Nadu
✘ 4. Maharashtra

Question ID : **4410091499741**
Option 1 ID : **4410095923855**
Option 2 ID : **4410095923854**
Option 3 ID : **4410095923857**
Option 4 ID : **4410095923856**

Q.13 Who inaugurated the first-ever World Audio Visual and Entertainment Summit (WAVES) 2025 in Mumbai, Maharashtra, on May 1, 2025?

Ans
✘ 1. Nitin Gadkari
✘ 2. Ashwini Vaishnaw
✘ 3. Piyush Goyal
✔ 4. Narendra Modi

Question ID : **4410091492679**
Option 1 ID : **4410095896400**
Option 2 ID : **4410095896398**
Option 3 ID : **4410095896397**
Option 4 ID : **4410095896399**

Quick Sarkari

Q.14 Who built the Brihadeeswara Temple at Thanjavur?

Ans
✗ 1. Rajendra
✗ 2. Parantaka
✗ 3. Kulottunga I
✓ 4. Rajaraja I

Question ID : **4410091489357**
Option 1 ID : **4410095883505**
Option 2 ID : **4410095883506**
Option 3 ID : **4410095883507**
Option 4 ID : **4410095883504**

Q.15 The Technology Mission on Oilseeds was started in India in the year:

Ans
✗ 1. 1975
✗ 2. 1980
✓ 3. 1986
✗ 4. 1992

Question ID : **441009610417**
Option 1 ID : **4410092396785**
Option 2 ID : **4410092396786**
Option 3 ID : **4410092396787**
Option 4 ID : **4410092396788**

Q.16 Which of the following challenges did India face in implementing privatisation during the initial phase?

Ans
✗ 1. Lack of private sector interest
✗ 2. Inadequate regulatory framework
✓ 3. Opposition from trade unions and political parties
✗ 4. Excessive government control over the industries

Question ID : **441009627320**
Option 1 ID : **4410092463432**
Option 2 ID : **4410092463435**
Option 3 ID : **4410092463433**
Option 4 ID : **4410092463434**

Q.17 From which location did ISRO launch the NISAR satellite using GSLV-F16 in July 2025?

Ans
✗ 1. Udhampur Launch Complex, Jammu & Kashmir
✓ 2. Satish Dhawan Space Centre (SDSC), Sriharikota
✗ 3. Thumba Equatorial Rocket Launching Station, Thiruvananthapuram
✗ 4. Vikram Sarabhai Space Centre, Thiruvananthapuram

Question ID : **4410091499904**
Option 1 ID : **4410095924506**
Option 2 ID : **4410095924507**
Option 3 ID : **4410095924508**
Option 4 ID : **4410095924509**

QuickSarkari.com | WhatsApp Channel | Telegram: t.me/quick_sarkari

Q.18 The 26th Asian Athletics Championships took place in May 2025 in which city?

Ans
✗ 1. Seoul
✓ 2. Gumi
✗ 3. Daegu
✗ 4. Busan

Question ID : **4410091496189**
Option 1 ID : **4410095910041**
Option 2 ID : **4410095910042**
Option 3 ID : **4410095910044**
Option 4 ID : **4410095910043**

Q.19 Which major administrative change followed the Revolt of 1857?

Ans
✓ 1. Transfer of power to the British Crown
✗ 2. Introduction of the Ryotwari System
✗ 3. Partition of Bengal
✗ 4. Establishment of Indian National Congress

Question ID : **4410091489469**
Option 1 ID : **4410095883921**
Option 2 ID : **4410095883922**
Option 3 ID : **4410095883924**
Option 4 ID : **4410095883923**

Q.20 The Rashtrakutas ruled from which region?

Ans
✗ 1. Punjab
✗ 2. Bengal
✓ 3. Deccan
✗ 4. Gujarat

Question ID : **4410091489328**
Option 1 ID : **4410095883391**
Option 2 ID : **4410095883390**
Option 3 ID : **4410095883389**
Option 4 ID : **4410095883388**

Section : **General Awareness1**

QuickSarkari.com | WhatsApp Channel | Telegram: t.me/quick_sarkari

Q.1 Who among the following was the leader of the 1857 Revolt in Lucknow?

Ans
✗ 1. Kunwar Singh
✓ 2. Begum Hazrat Mahal
✗ 3. Tantia Tope
✗ 4. Nana Saheb

Question ID : **4410091489437**
Option 1 ID : **4410095883799**
Option 2 ID : **4410095883798**
Option 3 ID : **4410095883800**
Option 4 ID : **4410095883797**

Q.2 What primarily causes the seasonal reversal of winds in India?

Ans
✗ 1. Jet streams
✓ 2. Differential heating of land and sea
✗ 3. Coriolis effect
✗ 4. Ocean currents

Question ID : **4410091490202**
Option 1 ID : **4410095886820**
Option 2 ID : **4410095886818**
Option 3 ID : **4410095886817**
Option 4 ID : **4410095886819**

Q.3 Which of the following combinations correctly matches the Constitutional Article with the corresponding provision on citizenship under Part II of the Constitution of India?

Ans
✗ 1. Article 7 – Migrants from Pakistan to India
✓ 2. Article 8 – Persons of Indian origin living abroad
✗ 3. Article 5 – Citizenship by birth abroad
✗ 4. Article 9 – Citizenship by services to the government

Question ID : **4410091503666**
Option 1 ID : **4410095938873**
Option 2 ID : **4410095938874**
Option 3 ID : **4410095938872**
Option 4 ID : **4410095938875**

Q.4 The reservation of seats for Scheduled Castes and Scheduled Tribes in the Lok Sabha is provided under which article?

Ans
✗ 1. Article 335
✗ 2. Article 332
✓ 3. Article 330
✗ 4. Article 338

Question ID : **4410091493564**
Option 1 ID : **4410095899882**
Option 2 ID : **4410095899881**
Option 3 ID : **4410095899880**
Option 4 ID : **4410095899883**

Q.5 **Under which Article of the Constitution of India are the effects of a Proclamation of National Emergency clearly defined?**

Ans
✗ 1. Article 354
✓ 2. Article 353
✗ 3. Article 352
✗ 4. Article 355

Question ID : **4410091536096**
Option 1 ID : **4410096067609**
Option 2 ID : **4410096067608**
Option 3 ID : **4410096067607**
Option 4 ID : **4410096067610**

Q.6 **The right to form associations or unions under Article 19 of the Indian Constitution does NOT include which of the following?**

Ans
✗ 1. The right to form political parties
✓ 2. The right to strike as a fundamental right
✗ 3. The right to form trade unions
✗ 4. The right to form cooperative societies

Question ID : **4410091503587**
Option 1 ID : **4410095938556**
Option 2 ID : **4410095938558**
Option 3 ID : **4410095938557**
Option 4 ID : **4410095938559**

Q.7 **Each organised skeletal muscle in our body is made up of a number of muscle bundles or fascicles held together by a common collagenous connective tissue layer called:**

Ans
✗ 1. plasma membran
✗ 2. muscle fibre
✓ 3. fascia
✗ 4. sarcolemma

Question ID : **441009616447**
Option 1 ID : **4410092419960**
Option 2 ID : **4410092419959**
Option 3 ID : **4410092419958**
Option 4 ID : **4410092419957**

QuickSarkari.com | WhatsApp Channel | Telegram: t.me/quick_sarkari

Q.8 The establishment of the National Commission for Scheduled Castes (NCSC) under the Constitution of India is provided in _____.

Ans
✗ 1. Article 341
✓ 2. Article 338
✗ 3. Article 340
✗ 4. Article 339

Question ID : **441009502502**
Option 1 ID : **4410091965181**
Option 2 ID : **4410091965178**
Option 3 ID : **4410091965180**
Option 4 ID : **4410091965179**

Q.9 Which of the following is NOT a Vedanga?

Ans
✗ 1. Nirukta
✓ 2. Kathasaritsagara
✗ 3. Jyotisha
✗ 4. Vyakarana

Question ID : **441009609474**
Option 1 ID : **4410092393014**
Option 2 ID : **4410092393016**
Option 3 ID : **4410092393015**
Option 4 ID : **4410092393013**

Q.10 Which of the following statements is INCORRECT about C4 plants?

Ans
✓ 1. Calvin pathway occurs in all the mesophyll cells of the C4 plants.
✗ 2. Maize and sorghum are C4 plants.
✗ 3. The bundle sheath cells may form several layers around the vascular bundles.
✗ 4. The leaves of C4 plants have Kranz' anatomy.

Question ID : **441009623920**
Option 1 ID : **4410092449815**
Option 2 ID : **4410092449814**
Option 3 ID : **4410092449813**
Option 4 ID : **4410092449812**

Q.11 Which of the following groups in the modern periodic table contains the metal sodium?

Ans
✓ 1. Group 1
✗ 2. Group 2
✗ 3. Group 13
✗ 4. Group 14

Question ID : **441009616108**
Option 1 ID : **4410092418601**
Option 2 ID : **4410092418602**
Option 3 ID : **4410092418603**
Option 4 ID : **4410092418604**

Q.12 The Indian Desert mainly extends over which of the following Indian states?

Ans
✗ 1. Madhya Pradesh and Maharashtra
✓ 2. Gujarat and Rajasthan
✗ 3. Uttar Pradesh and Bihar
✗ 4. Punjab and Himachal Pradesh

Question ID : **4410091513682**
Option 1 ID : **4410095978707**
Option 2 ID : **4410095978708**
Option 3 ID : **4410095978709**
Option 4 ID : **4410095978706**

Q.13 The Onge tribes of Andaman Islands are a part of which of the following racial stock?

Ans
✓ 1. Negrito
✗ 2. Austroasiatic
✗ 3. Dravidian
✗ 4. Mongoloid

Question ID : **441009172334**
Option 1 ID : **441009681888**
Option 2 ID : **441009681890**
Option 3 ID : **441009681891**
Option 4 ID : **441009681889**

Q.14 According to the Census 2011, which Union Territory has the highest number of in-migrants?

Ans
✗ 1. Lakshadweep
✓ 2. Delhi
✗ 3. Chandigarh
✗ 4. Daman and Diu

Question ID : **441009638955**
Option 1 ID : **4410092509965**
Option 2 ID : **4410092509964**
Option 3 ID : **4410092509963**
Option 4 ID : **4410092509966**

Quick Sarkari

Q.15 Which Constitutional Amendment extended the reservation of seats for Scheduled Castes (SCs) and Scheduled Tribes (STs) in the Parliament and State Assemblies while discontinuing the reserved seats for Anglo-Indians?

Ans
✔ 1. 104th Amendment Act
✘ 2. 100th Amendment Act
✘ 3. 102nd Amendment Act
✘ 4. 101st Amendment Act

Question ID : **4410091493554**
Option 1 ID : **4410095899842**
Option 2 ID : **4410095899840**
Option 3 ID : **4410095899843**
Option 4 ID : **4410095899841**

Q.16 The Lomas Rishi cave is located in which of the following states?

Ans
✘ 1. Odisha
✘ 2. Maharashtra
✘ 3. Karnataka
✔ 4. Bihar

Question ID : **441009609278**
Option 1 ID : **4410092392231**
Option 2 ID : **4410092392230**
Option 3 ID : **4410092392229**
Option 4 ID : **4410092392232**

Q.17 Which of the following Buddhist canonical literatures contains the monastic rules of the order of Buddhist monks?

Ans
✘ 1. Sutta Pitaka
✔ 2. Vinaya Pitaka
✘ 3. Jataka Katha
✘ 4. Abhidhamma Pitaka

Question ID : **441009609609**
Option 1 ID : **4410092393554**
Option 2 ID : **4410092393555**
Option 3 ID : **4410092393553**
Option 4 ID : **4410092393556**

Q.18 Which coastal plain of India is broader and more gently sloping?

Ans
✘ 1. Malabar Coast
✘ 2. Konkan Coast
✔ 3. Eastern Coastal Plain
✘ 4. Western Coastal Plain

Question ID : **4410091491284**
Option 1 ID : **4410095890925**
Option 2 ID : **4410095890924**
Option 3 ID : **4410095890923**
Option 4 ID : **4410095890922**

QuickSarkari.com | WhatsApp Channel | Telegram: t.me/quick_sarkari

Q.19 Which ocean lies to the south of India?

Ans
✗ 1. Pacific Ocean
✗ 2. Southern Ocean
✓ 3. Indian Ocean
✗ 4. Atlantic Ocean

Question ID : **4410091491272**
Option 1 ID : **4410095890874**
Option 2 ID : **4410095890877**
Option 3 ID : **4410095890876**
Option 4 ID : **4410095890875**

Q.20 Which of the following bodies facilitates coordination between the Centre and States on common policy matters?

Ans
✓ 1. Inter-State Council
✗ 2. Planning Commission
✗ 3. NITI Aayog Governing Council
✗ 4. Zonal Councils

Question ID : **4410091493510**
Option 1 ID : **4410095899665**
Option 2 ID : **4410095899667**
Option 3 ID : **4410095899666**
Option 4 ID : **4410095899664**

Section : **General intelligence and Reasoning Ability**

Q.1 Refer to the following letter and symbol series and answer the question that follows. Counting to be done from left to right only.

(Left) S # ^ D R G * Y W @ E % P V & X Z A $ C Ω Q σ (Right)

How many such symbols are there, each of which is immediately preceded by a letter and also immediately followed by a symbol?10796

Ans
✗ 1. None
✗ 2. Three
✗ 3. Two
✓ 4. One

Question ID : **441009796780**
Option 1 ID : **4410093141119**
Option 2 ID : **4410093141122**
Option 3 ID : **4410093141121**
Option 4 ID : **4410093141120**

QuickSarkari.com | WhatsApp Channel | Telegram: t.me/quick_sarkari

Q.2 In a certain code language,
'A ! B' means 'A is the brother of B',
'A % B' means 'A is the father of B',
'A ÷ B' means 'A is the son of B' and
'A € B' means 'A is the wife of B'.
Based on the above, how is D related to X if 'D ÷ E % V ! W € X'?

Ans
✗ 1. Brother
✓ 2. Wife's brother
✗ 3. Father
✗ 4. Mother's brother

Question ID : **4410091483762**
Option 1 ID : **4410095861921**
Option 2 ID : **4410095861924**
Option 3 ID : **4410095861922**
Option 4 ID : **4410095861923**

Q.3 In a certain code language,
A + B means 'A is the husband of B'
A - B means 'A is the sister of B'
A × B means 'A is the mother of B'
A ÷ B means 'A is the brother of B'
Based on the above, how is Q related to P if 'Q - R + S × T ÷ P'?

Ans
✓ 1. Father's sister
✗ 2. Daughter
✗ 3. Mother's sister
✗ 4. Husband's sister

Question ID : **4410091491223**
Option 1 ID : **4410095890680**
Option 2 ID : **4410095890679**
Option 3 ID : **4410095890681**
Option 4 ID : **4410095890678**

Q.4 Each of B, A, R, C, O, D and E has an exam on a different day of a week, starting from Monday and ending on Sunday of the same week. B has exam on Thursday. D has exam on one of the days after C and on one of the days before A. R has exam on one of the days after O but on one of the days before E. O has exam on one of the days after B. How many people have exam between R and D?

Ans
✗ 1. Two
✓ 2. Three
✗ 3. Four
✗ 4. One

Question ID : **4410091528182**
Option 1 ID : **4410096035922**
Option 2 ID : **4410096035923**
Option 3 ID : **4410096035924**
Option 4 ID : **4410096035921**

Quick Sarkari

Q.5 Select the pair which follows the same pattern as that followed by the two pairs given below. Both pairs follow the same pattern.

GIK : JLN
PRT : SUW

Ans
✔ 1. EGI : HJL
✘ 2. EHI : KLO
✘ 3. QSW : UVY
✘ 4. NRV : STW

Question ID : **441009774511**
Option 1 ID : **4410093052048**
Option 2 ID : **4410093052049**
Option 3 ID : **4410093052050**
Option 4 ID : **4410093052047**

Q.6 Refer to the following number and symbol series and answer the question that follows. Counting to be done from left to right only. All numbers are single-digit numbers only.

(Left) ^ 3 # 8 < & > 3 & % 9 & 3 > * 9 9 < 2 4 1 (Right)

How many such symbols are there, each of which is immediately preceded by a symbol and also immediately followed by a number?

Ans
✘ 1. One
✔ 2. More than two
✘ 3. Two
✘ 4. None

Question ID : **441009794919**
Option 1 ID : **4410093133675**
Option 2 ID : **4410093133677**
Option 3 ID : **4410093133676**
Option 4 ID : **4410093133678**

Q.7 In a certain code language, 'SOAR' is coded as '6879' and 'ROAD' is coded as '7681'. What is the code for 'D' in the given code language?10502

Ans
✘ 1. 7
✘ 2. 8
✔ 3. 1
✘ 4. 6

Question ID : **441009796486**
Option 1 ID : **4410093139944**
Option 2 ID : **4410093139946**
Option 3 ID : **4410093139943**
Option 4 ID : **4410093139945**

Q.8 In a certain code language, 'ROAD' is coded as '4583' and 'HARD' is coded as '5831'. What is the code for 'H' in that language?

Ans
✗ 1. 8
✗ 2. 3
✓ 3. 1
✗ 4. 5

Question ID : **441009796490**
Option 1 ID : **4410093139962**
Option 2 ID : **4410093139960**
Option 3 ID : **4410093139959**
Option 4 ID : **4410093139961**

Q.9 Seven people, S, L, I, P, E, R and D are sitting in a row, facing north. Only three people sit between L and I. E sits to the immediate left of I. No one sits to the right of D. Only two people sit between D and E. S sits to the immediate right of R. How many people sit between P and S?

Ans
✗ 1. Three
✗ 2. One
✓ 3. Two
✗ 4. Four

Question ID : **4410091528166**
Option 1 ID : **4410096035859**
Option 2 ID : **4410096035857**
Option 3 ID : **4410096035858**
Option 4 ID : **4410096035860**

Q.10 EP 12 is related to GK 1 in a certain way. In the same way, MO 15 is related to OJ 4. To which of the following is MX 21 related, following the same logic? 11872

Ans
✗ 1. YT 14
✗ 2. MK 11
✗ 3. KL 13
✓ 4. OS 10

Question ID : **441009785731**
Option 1 ID : **4410093096930**
Option 2 ID : **4410093096927**
Option 3 ID : **4410093096929**
Option 4 ID : **4410093096928**

QuickSarkari.com | WhatsApp Channel | Telegram: t.me/quick_sarkari

Q.11 Seven boxes, D, E, F, G, U, V and W, are kept one over the other, but not necessarily in the same order. V is kept immediately above D. Only four boxes are kept between U and F. Only W is kept above U. Only two boxes are kept between G and E. E is not kept immediately above V.
How many boxes are kept between W and V?

Ans
✗ 1. One
✓ 2. Two
✗ 3. Three
✗ 4. Four

Question ID : **4410091482870**
Option 1 ID : **4410095858453**
Option 2 ID : **4410095858454**
Option 3 ID : **4410095858455**
Option 4 ID : **4410095858456**

Q.12 Seven boxes, D, E, F, G, U, V and W, are kept one over the other, but not necessarily in the same order. No box is kept above U. Only four boxes are kept between F and W. Only one box is kept between F and E. Only three boxes are kept between U and G. E is kept immediately above G. D is kept at some place above V.
How many boxes are kept between G and D?

Ans
✗ 1. Three
✗ 2. Two
✗ 3. Four
✓ 4. One

Question ID : **4410091482872**
Option 1 ID : **4410095858463**
Option 2 ID : **4410095858462**
Option 3 ID : **4410095858464**
Option 4 ID : **4410095858461**

Q.13 Refer to the following number series and answer the question that follows (all numbers are single-digit numbers only). Counting to be done from left to right only.

(Left) 3 4 6 7 8 5 7 9 4 1 1 5 2 8 9 8 3 1 8 9 7 4 2 (Right)

How many such odd numbers are there, each of which is immediately preceded by an odd number and also immediately followed by an odd number?1077

Ans
✗ 1. One
✓ 2. Two
✗ 3. Three
✗ 4. None

Question ID : **441009775085**
Option 1 ID : **4410093054344**
Option 2 ID : **4410093054345**
Option 3 ID : **4410093054346**
Option 4 ID : **4410093054343**

QuickSarkari.com | WhatsApp Channel | Telegram: t.me/quick_sarkari

Q.14 Refer to the following letter, symbol series and answer the question that follows. Counting to be done from left to right only.

(Left) G D & E $ A K @ Z V & L Ω M Q # R * W Σ T ^ (Right)

How many such symbols are there, each of which is immediately preceded by a vowel but not immediately followed by a vowel?

Ans
✗ 1. Three
✗ 2. One
✓ 3. None
✗ 4. Two

Question ID : **441009796788**
Option 1 ID : **4410093141154**
Option 2 ID : **4410093141152**
Option 3 ID : **4410093141151**
Option 4 ID : **4410093141153**

Q.15 Each of B, A, R, C, O, D and E has an exam on a different day of a week starting from Monday and ending on Sunday of the same week. E has exam on Thursday and D has exam on Saturday. C has exam immediately before A. O has exam on one of the days after B. R has exam immediately after A. How many people have exam between O and R?

Ans
✗ 1. Two
✗ 2. One
✓ 3. Three
✗ 4. Four

Question ID : **4410091528185**
Option 1 ID : **4410096035934**
Option 2 ID : **4410096035933**
Option 3 ID : **4410096035935**
Option 4 ID : **4410096035936**

Q.16 Seven people, D, E, F, G, U, V and W, are sitting around a circular table, facing the centre of the table. V sits to the immediate right of F. Only three people sit between G and E when counted from the left of G. Only three people sit between F and U when counted from the right of U. D sits immediately between U and E. How many people sit between D and W when counted from the right of D?

Ans
✓ 1. One
✗ 2. Four
✗ 3. Three
✗ 4. Two

Question ID : **4410091482812**
Option 1 ID : **4410095858228**
Option 2 ID : **4410095858225**
Option 3 ID : **4410095858226**
Option 4 ID : **4410095858227**

Q.17 Refer to the following letter and symbol series and answer the question that follows.

(Left) U N @ D & A Z $ K V & L Ω M Q # W * R % T Σ (Right)

If all the letters are dropped from the series, which of the following will be sixth from the right?10800

Ans
✗ 1. #
✗ 2. $
✓ 3. &
✗ 4. %

Question ID : **441009796784**
Option 1 ID : **4410093141135**
Option 2 ID : **4410093141136**
Option 3 ID : **4410093141137**
Option 4 ID : **4410093141138**

Q.18 In a certain code language, 'float above fears' is coded as 'mt kr el' and 'keep faith float' is coded as 'bx up el'. How is 'float' coded in the given language?

Ans
✗ 1. up
✗ 2. kr
✗ 3. mt
✓ 4. el

Question ID : **4410091488084**
Option 1 ID : **4410095878466**
Option 2 ID : **4410095878465**
Option 3 ID : **4410095878464**
Option 4 ID : **4410095878467**

Q.19 Refer to the following letter series and answer the question that follows. Counting to be done from left to right only.

(Left) E T Q M F W U D S D P Y W E G I L O X (Right)

How many such vowels are there, each of which is immediately preceded by a consonant and also immediately followed by a consonant?

Ans
✗ 1. One
✓ 2. Four
✗ 3. Three
✗ 4. Two

Question ID : **441009781966**
Option 1 ID : **4410093081867**
Option 2 ID : **4410093081870**
Option 3 ID : **4410093081869**
Option 4 ID : **4410093081868**

QuickSarkari.com | WhatsApp Channel | Telegram: t.me/quick_sarkari

Q.20 Refer to the following letter and symbol series and answer the question that follows. Counting to be done from left to right only.

(Left) S K U N \ A A + Q W = K T / N X @ + D # L (Right)

How many such letters are there, each of which is immediately preceded by a letter and also immediately followed by a symbol?1085

Ans
✗ 1. Three
✓ 2. Five
✗ 3. Four
✗ 4. Two

Question ID : **441009787215**
Option 1 ID : **4410093102860**
Option 2 ID : **4410093102862**
Option 3 ID : **4410093102861**
Option 4 ID : **4410093102859**

Section : **General intelligence and Reasoning Ability1**

Q.1 What should come in place of the question mark (?) in the given series?

32 33 35 39 47 ?

Ans
✗ 1. 65
✗ 2. 62
✓ 3. 63
✗ 4. 64

Question ID : **4410091522229**
Option 1 ID : **4410096012029**
Option 2 ID : **4410096012027**
Option 3 ID : **4410096012026**
Option 4 ID : **4410096012028**

Q.2 If 'A' stands for '÷', 'B' stands for 'x', 'C' stands for '+' and 'D' stands for '-', what will come in place of the question mark (?) in the following equation?

4 B 3 D 15 A 5 C 1 = ? D 12

Ans
✗ 1. 24
✗ 2. 18
✗ 3. 20
✓ 4. 22

Question ID : **441009555215**
Option 1 ID : **4410092176177**
Option 2 ID : **4410092176174**
Option 3 ID : **4410092176175**
Option 4 ID : **4410092176176**

Quick Sarkari

Q.3 Based on the English alphabetical order, three of the following four are alike in a certain way and thus form a group. Which is the one that does not belong to that group?
(Note: The odd one out is not based on the number of consonants/vowels or their position in the letter cluster.)10424

Ans
✗ 1. PNIG
✓ 2. SQLP
✗ 3. CAVT
✗ 4. RPKI

Question ID : **441009784286**
Option 1 ID : **4410093091150**
Option 2 ID : **4410093091148**
Option 3 ID : **4410093091149**
Option 4 ID : **4410093091147**

Q.4 Two sets of numbers are given below. In each set of numbers, certain mathematical operation(s) on the first number result(s) in the second number. Similarly, certain mathematical operation(s) on the second number result(s) in the third number and so on. Which of the given options follows the same set of operations as in the given sets?
(NOTE: A two-/three-digit number cannot be broken into individual digits for operations. E.g., if 37 is followed by 10, the operation cannot be 3 + 7 as a two-digit number cannot be broken into individual digits.)

12 - 10 - 8 - 6 ; 9 - 7 - 5 - 3

Ans
✗ 1. 15 - 13 - 12 - 11
✓ 2. 18 - 16 - 14 - 12
✗ 3. 27 - 25 - 23 - 22
✗ 4. 20 - 10 - 8 - 6

Question ID : **441009528019**
Option 1 ID : **4410092067481**
Option 2 ID : **4410092067482**
Option 3 ID : **4410092067483**
Option 4 ID : **4410092067480**

Q.5 112 is related to 237 following a certain logic. Following the same logic, 95 is related to 220. To which of the following is 81 related, following the same logic?

(NOTE: Operations should be performed on the whole numbers, without breaking down the numbers into their constituent digits. E.g. 13 – Operations on 13 such as adding /subtracting /multiplying etc. to 13 can be performed. Breaking down 13 into 1 and 3 and then performing mathematical operations on 1 and 3 is not allowed.)

Ans
✓ 1. 206
✗ 2. 196
✗ 3. 186
✗ 4. 216

Question ID : **441009530787**
Option 1 ID : **4410092078554**
Option 2 ID : **4410092078553**
Option 3 ID : **4410092078552**
Option 4 ID : **4410092078555**

Quick Sarkari

Q.6 Select the triad which follows the same pattern as that followed by the two triads given below. Both triads follow the same pattern.

MO - QS - UW
EG - IK - MO

Ans
✗ 1. EH - JL - LN
✗ 2. KL - MP - QV
✓ 3. YA - CE - GI
✗ 4. UX - WZ - YD

Question ID : **441009774505**
Option 1 ID : **4410093052026**
Option 2 ID : **4410093052025**
Option 3 ID : **4410093052024**
Option 4 ID : **4410093052023**

Q.7 Select the set in which the numbers are related in the same way as are the numbers of the following sets.
(NOTE: Operations should be performed on the whole numbers, without breaking down the numbers into their constituent digits. E.g. 13 – Operations on 13 such as adding to/subtracting from/multiplying with 13 can be performed. Breaking down 13 into 1 and 3 and then performing mathematical operations on 1 and 3 is not allowed.)

(14, 364, 13)
(11, 242, 11)

Ans
✓ 1. (13, 338, 13)
✗ 2. (15, 450, 10)
✗ 3. (12, 288, 14)
✗ 4. (10, 180, 5)

Question ID : **441009533154**
Option 1 ID : **4410092088022**
Option 2 ID : **4410092088023**
Option 3 ID : **4410092088020**
Option 4 ID : **4410092088021**

Quick Sarkari

Q.8 Select the set in which the numbers are related in the same way as are the numbers of the following sets.
(NOTE : Operations should be performed on the whole numbers, without breaking down the numbers into its constituent digits. E.g. 13 – Operations on 13 such as adding / subtracting / multiplying etc. to 13 can be performed. Breaking down 13 into 1 and 3 and then performing mathematical operations on 1 and 3 is not allowed.)

(1,21,18)
(14,17,1)

Ans
✔ 1. (22,27,3)
✘ 2. (17,2,1)
✘ 3. (5,5,18)
✘ 4. (25,7,20)

Question ID : **4410091203690**
Option 1 ID : **4410094748261**
Option 2 ID : **4410094748262**
Option 3 ID : **4410094748263**
Option 4 ID : **4410094748264**

Q.9 Each of the digits in the number 8934216 is arranged in ascending order from left to right. What will be the sum of the digits which are second from the left and second from the right in the new number thus formed?

Ans
✔ 1. 10
✘ 2. 12
✘ 3. 9
✘ 4. 7

Question ID : **441009553243**
Option 1 ID : **4410092168288**
Option 2 ID : **4410092168289**
Option 3 ID : **4410092168287**
Option 4 ID : **4410092168286**

Q.10 Which of the following letter-number clusters will replace the question mark (?) in the given series to make it logically complete?

JJP 9 MHM −4 PFJ −17 SDG −30 ?

Ans
✘ 1. VHG −44
✘ 2. VVY −48
✘ 3. VBJ −46
✔ 4. VBD −43

Question ID : **4410091484880**
Option 1 ID : **4410095866002**
Option 2 ID : **4410095866004**
Option 3 ID : **4410095866003**
Option 4 ID : **4410095866001**

Q.11 If 'A' stands for '÷' , 'B' stands for '×', 'C' stands for '+' and 'D' stands for '-' , what will be come in place of question mark '?' in the following equation?
24 D 27 B 20 A 15 C 46 = ?

Ans
✗ 1. 35
✓ 2. 34
✗ 3. 36
✗ 4. 32

Question ID : **4410091522036**
Option 1 ID : **4410096011273**
Option 2 ID : **4410096011270**
Option 3 ID : **4410096011271**
Option 4 ID : **4410096011272**

Q.12 Each of the digits in the number 8934521 is arranged in ascending order from left to right. What will be the sum of the digits which are second from the left and second from the right in the new number thus formed?

Ans
✓ 1. 10
✗ 2. 11
✗ 3. 8
✗ 4. 9

Question ID : **441009553241**
Option 1 ID : **4410092168280**
Option 2 ID : **4410092168281**
Option 3 ID : **4410092168278**
Option 4 ID : **4410092168279**

Q.13 Which of the following letter-number clusters will replace the question mark (?) in the given series to make it logically complete?

ZEZ 5 UJV -10 POR 20 KTN -40 ?

Ans
✗ 1. JKO 43
✗ 2. MJU 67
✓ 3. FYJ 80
✗ 4. NMK 44

Question ID : **4410091484915**
Option 1 ID : **4410095866141**
Option 2 ID : **4410095866143**
Option 3 ID : **4410095866142**
Option 4 ID : **4410095866144**

QuickSarkari.com | WhatsApp Channel | Telegram: t.me/quick_sarkari

Q.14 **Select the correct mirror image of the given combination when the mirror is placed at 'PQ' as shown below.**



Ans

✗ 1. 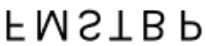

✗ 2. 

✓ 3. 

✗ 4. 

Question ID : **4410091471919**
Option 1 ID : **4410095815568**
Option 2 ID : **4410095815567**
Option 3 ID : **4410095815569**
Option 4 ID : **4410095815570**

Q.15 **20 is related to 85 following a certain logic. Following the same logic, 15 is related to 65. To which of the following is 23 related, following the same logic?**
(NOTE: Operations should be performed on the whole numbers, without breaking down the numbers into its constituent digits. E.g. 13 – Operations on 13 such as adding/subtracting/multiplying etc. to 13 can be performed. Breaking down 13 into 1 and 3 and then performing mathematical operations on 1 and 3 is not allowed.)

Ans

✗ 1. 107

✗ 2. 92

✓ 3. 97

✗ 4. 103

Question ID : **441009530784**
Option 1 ID : **4410092078543**
Option 2 ID : **4410092078540**
Option 3 ID : **4410092078541**
Option 4 ID : **4410092078542**

Quick Sarkari

Q.16 Based on the English alphabetical order, three of the following four letter-clusters are alike in a certain way and thus form a group. Which is the one that does not belong to that group?
(Note: The odd one out is not based on the number of consonants/vowels or their position in the letter cluster.)

Ans
✗ 1. EXRP
✗ 2. CVPN
✓ 3. PJCA
✗ 4. MFZX

Question ID : **441009784283**
Option 1 ID : **4410093091135**
Option 2 ID : **4410093091138**
Option 3 ID : **4410093091136**
Option 4 ID : **4410093091137**

Q.17 What should come in place of ? in the given series?
5 -7 -21 -37 -55 ?

Ans
✗ 1. -76
✗ 2. -73
✓ 3. -75
✗ 4. -74

Question ID : **4410091522243**
Option 1 ID : **4410096012083**
Option 2 ID : **4410096012085**
Option 3 ID : **4410096012082**
Option 4 ID : **4410096012084**

Q.18 Based on the English alphabetical order, three of the following four letter-cluster pairs are alike in a certain way and thus form a group. Which is the one that does not belong to that group?
(Note: The odd one out is not based on the number of consonants/vowels or their position in the letter cluster.)4695

Ans
✗ 1. DF–GI
✗ 2. LN–OQ
✗ 3. MO–PR
✓ 4. HJ–KN

Question ID : **441009778677**
Option 1 ID : **4410093068712**
Option 2 ID : **4410093068714**
Option 3 ID : **4410093068713**
Option 4 ID : **4410093068711**

QuickSarkari

Q.19 If 'A' stands for '÷', 'B' stands for 'x', 'C' stands for '+' and 'D' stands for '-', what will come in place of the question mark (?) in the following equation?

9 B 3 D 14 A 2 C 1 = ? D 2

Ans
✔ 1. 23
✘ 2. 27
✘ 3. 21
✘ 4. 25

Question ID : **4410095552 12**
Option 1 ID : **4410092176163**
Option 2 ID : **4410092176165**
Option 3 ID : **4410092176162**
Option 4 ID : **4410092176164**

Q.20 What should come in place of ? in the given series?
10 11 13 17 25 ?

Ans
✔ 1. 41
✘ 2. 42
✘ 3. 43
✘ 4. 40

Question ID : **4410091522318**
Option 1 ID : **4410096012372**
Option 2 ID : **4410096012374**
Option 3 ID : **4410096012375**
Option 4 ID : **4410096012373**

Section : **Arithmetical and Numerical Ability**

Q.1 The average of five consecutive odd multiples of 17 is 119. Find the difference between the largest and smallest numbers.

Ans
✘ 1. 163
✘ 2. 142
✔ 3. 136
✘ 4. 124

Question ID : **4410091463795**
Option 1 ID : **4410095783315**
Option 2 ID : **4410095783316**
Option 3 ID : **4410095783314**
Option 4 ID : **4410095783317**

QuickSarkari.com | WhatsApp Channel | Telegram: t.me/quick_sarkari

Q.2 What is the ratio of the Least Common Multiple to the Highest Common Factor of two numbers whose ratio is 4:7 and whose sum is 44?

Ans
✗ 1. 7:4
✓ 2. 28:1
✗ 3. 4:7
✗ 4. 14:1

Question ID : **4410091536843**
Option 1 ID : **4410096070666**
Option 2 ID : **4410096070663**
Option 3 ID : **4410096070665**
Option 4 ID : **4410096070664**

Q.3 By how much is 30% of 75 greater than 20% of 45?

Ans
✓ 1. 13.5
✗ 2. 15.5
✗ 3. 10.5
✗ 4. 8.5

Question ID : **441009856658**
Option 1 ID : **4410093379604**
Option 2 ID : **4410093379607**
Option 3 ID : **4410093379606**
Option 4 ID : **4410093379605**

QuickSarkari.com | WhatsApp Channel | Telegram: t.me/quick_sarkari

Q.4 Study the chart carefully and answer the question that follows.
The pie-chart given below shows the spending of a state on various sports during a particular year.

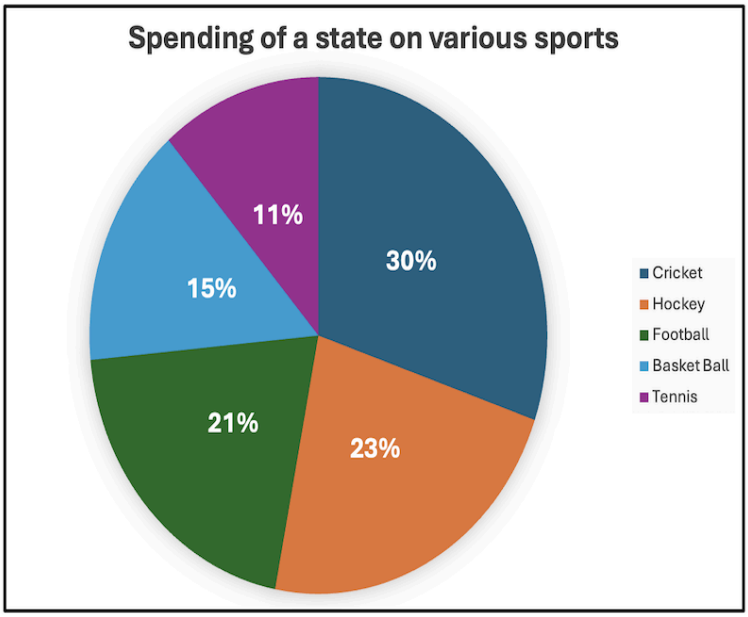

Find the percentage difference between spending on hockey and tennis.

Ans
✗ 1. 8%
✓ 2. 12%
✗ 3. 13%
✗ 4. 11%

Question ID : **4410091450051**
Option 1 ID : **4410095728822**
Option 2 ID : **4410095728820**
Option 3 ID : **4410095728823**
Option 4 ID : **4410095728821**

Q.5 Mukund has two grandsons, Sachin and Chetan. 11-year-old Sachin gets some money from Mukund's wealth, and 12-year-old Chetan gets the rest of the money. However, both will receive the money only when they turn 21 years old. Until then, the money is kept in a bank earning interest at 10% compounded annually. When they each turn 21, they receive the same amount. How much had Mukund given to Chetan initially, if the total money with Mukund was ₹25,200?

Ans
✗ 1. 11,750
✓ 2. 13,200
✗ 3. 13,550
✗ 4. 12,000

Question ID : **441009572930**
Option 1 ID : **4410092246843**
Option 2 ID : **4410092246840**
Option 3 ID : **4410092246842**
Option 4 ID : **4410092246841**

Q.6 If 10 workers working for 4 hours complete the work in 12 days, in how many days will 8 workers working for 6 hours complete the same work?

Ans
1. 9 days
2. 8 days
3. 10 days
4. 11 days

Question ID : **4410091438640**
Option 1 ID : **4410095683266**
Option 2 ID : **4410095683268**
Option 3 ID : **4410095683265**
Option 4 ID : **4410095683267**

Q.7 Find the simplified value of $38^{-10} \div 38^{18} \times 38^{-17}$

Ans
1. 38-51
2. 38-45
3. 38-41
4. 38-44

Question ID : **441009896038**
Option 1 ID : **4410093538224**
Option 2 ID : **4410093538222**
Option 3 ID : **4410093538225**
Option 4 ID : **4410093538223**

Q.8 The arithmetic mean of the observations 72, 14, 92, 93, 70, 19, 98, 34 and 39 is:

Ans
1. 54
2. 57
3. 59
4. 60

Question ID : **441009583223**
Option 1 ID : **4410092288021**
Option 2 ID : **4410092288019**
Option 3 ID : **4410092288018**
Option 4 ID : **4410092288020**

Q.9 Amit's income in 2019 was ₹26800. He gets an increment of 30% every year. What was his income (in ₹) in 2021?

Ans
1. 26800
2. 45292
3. 42880
4. 34840

Question ID : **441009858986**
Option 1 ID : **4410093388919**
Option 2 ID : **4410093388916**
Option 3 ID : **4410093388918**
Option 4 ID : **4410093388917**

Q.10 Tushar has two grandsons, Salil and Mukund. 10-year-old Salil gets some money from Tushar's wealth, and 11-year-old Mukund gets the rest of the money. But Salil and Mukund will get the money only when they turn 21 years old. Till then, the money is in a bank getting interest at rate 10% compounded annually. When both turn 21, they receive the same amount. How much had Tushar given Mukund (in ₹) initially, if the total money with Tushar was ₹23,100?

Ans
✔ 1. 12100
✘ 2. 10750
✘ 3. 12450
✘ 4. 11000

Question ID : **441009572931**
Option 1 ID : **4410092246844**
Option 2 ID : **4410092246847**
Option 3 ID : **4410092246846**
Option 4 ID : **4410092246845**

Q.11 Find the simple interest (in ₹) on ₹5000 as a sum borrowed at 5% per year rate of interest for 4 years.

Ans
✘ 1. 960
✘ 2. 1040
✔ 3. 1000
✘ 4. 940

Question ID : **441009852221**
Option 1 ID : **4410093361859**
Option 2 ID : **4410093361857**
Option 3 ID : **4410093361856**
Option 4 ID : **4410093361858**

Q.12 20% of [{(220% of 40) − 20}] of 2500 = _____.

Ans
✘ 1. 32000
✘ 2. 33000
✔ 3. 34000
✘ 4. 35000

Question ID : **441009896258**
Option 1 ID : **4410093539102**
Option 2 ID : **4410093539103**
Option 3 ID : **4410093539104**
Option 4 ID : **4410093539105**

QuickSarkari.com | WhatsApp Channel | Telegram: t.me/quick_sarkari

Q.13 There is milk sample with 40% water in it. If one-fifth of this milk is added to equal amount of pure milk, then water in the new mixture will fall down to:

Ans
✗ 1. 22.6 %
✗ 2. 22%
✗ 3. 21.4 %
✓ 4. 20%

Question ID : **4410091447435**
Option 1 ID : **4410095718577**
Option 2 ID : **4410095718576**
Option 3 ID : **4410095718578**
Option 4 ID : **4410095718575**

Q.14 The value of $\frac{(59049)^{\frac{1}{5}} \times (28)^3}{3^2 \times 7^2 \times 2^6}$ is:

Ans
✓ 1. 7
✗ 2. 9
✗ 3. 12
✗ 4. 4

Question ID : **4410091305344**
Option 1 ID : **4410095153450**
Option 2 ID : **4410095153451**
Option 3 ID : **4410095153452**
Option 4 ID : **4410095153449**

Q.15 Which of the following numbers is divisible by 54?

Ans
✗ 1. 798852
✗ 2. 794792
✓ 3. 797148
✗ 4. 796906

Question ID : **441009896083**
Option 1 ID : **4410093538404**
Option 2 ID : **4410093538403**
Option 3 ID : **4410093538402**
Option 4 ID : **4410093538405**

QuickSarkari

Q.16 Simplify $0.75 + \frac{2}{5}$

Ans
✗ 1. 0.95
✗ 2. 1.05
✓ 3. 1.15
✗ 4. 1.25

Question ID : **4410091450623**
Option 1 ID : **4410095730950**
Option 2 ID : **4410095730951**
Option 3 ID : **4410095730952**
Option 4 ID : **4410095730953**

Q.17 The H.C.F. and L.C.M. of two numbers are 2 and 426, respectively. If one of the numbers is 142, find the other one.

Ans
✗ 1. 4
✗ 2. 18
✓ 3. 6
✗ 4. 3

Question ID : **441009525496**
Option 1 ID : **4410092057404**
Option 2 ID : **4410092057405**
Option 3 ID : **4410092057403**
Option 4 ID : **4410092057406**

Q.18 In what ratio must a grocer mix two varieties of wheat worth ₹95 per kg and ₹122 per kg so that if he sells the mixture at ₹127 per kg, he may gain 27%?

Ans
✗ 1. 27:2
✓ 2. 22:5
✗ 3. 32:10
✗ 4. 24:6

Question ID : **441009539810**
Option 1 ID : **4410092114638**
Option 2 ID : **4410092114636**
Option 3 ID : **4410092114639**
Option 4 ID : **4410092114637**

QuickSarkari

Q.19 $Simplify \dfrac{\left(\frac{18}{2}+\frac{19}{8}\ of\ \frac{8}{2}\right)}{\left(12-\frac{19}{8}\div\frac{2}{8}\right)}$

Ans

✗ 1. $\frac{39}{7}$

✗ 2. $\frac{43}{6}$

✗ 3. $\frac{28}{9}$

✓ 4. $\frac{37}{5}$

Question ID : **4410091912566**
Option 1 ID : **4410093604517**
Option 2 ID : **4410093604516**
Option 3 ID : **4410093604518**
Option 4 ID : **4410093604515**

Q.20 **The bar graph below shows the number of laptops sold by a company during five consecutive years.**

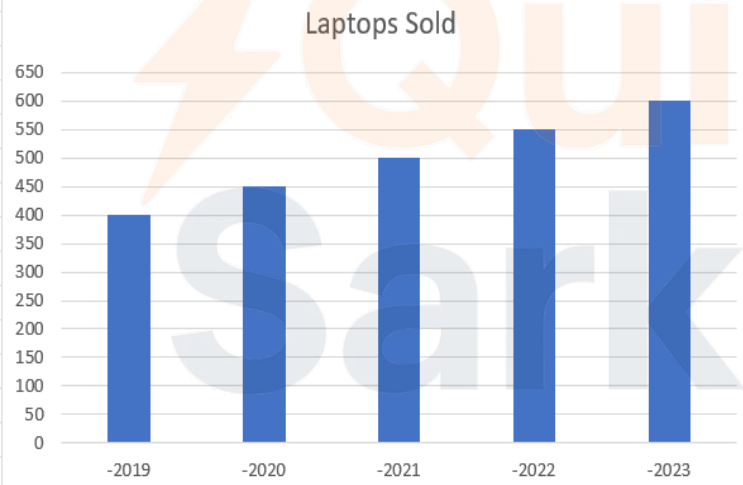

What is the average number of laptops sold per year over these five years?

Ans

✗ 1. 620

✓ 2. 500

✗ 3. 560

✗ 4. 480

Question ID : **4410091441302**
Option 1 ID : **4410095693862**
Option 2 ID : **4410095693860**
Option 3 ID : **4410095693861**
Option 4 ID : **4410095693859**

QuickSarkari.com | WhatsApp Channel | Telegram: t.me/quick_sarkari

Section : **Arithmetical and Numerical Ability1**

Q.1 **If a sum of ₹7601 is divided between Ravina and Sarita in the ratio 2 : 9, then find Sarita's share (in ₹).**

Ans

✗ 1. 6221

✗ 2. 6220

✗ 3. 6217

✓ 4. 6219

Question ID : **441009898535**
Option 1 ID : **4410093548213**
Option 2 ID : **4410093548212**
Option 3 ID : **4410093548211**
Option 4 ID : **4410093548210**

Q.2 **Find the outer curved surface area of a conical vessel having a radius of 8 cm and a height of 15 cm. (Use $\pi = \frac{22}{7}$)**

Ans

✗ 1. $\frac{3892}{7}\ \text{cm}^2$

✓ 2. $\frac{2992}{7}\ \text{cm}^2$

✗ 3. $\frac{1992}{7}\ \text{cm}^2$

✗ 4. $\frac{2999}{7}\ \text{cm}^2$

Question ID : **4410091537622**
Option 1 ID : **4410096073732**
Option 2 ID : **4410096073731**
Option 3 ID : **4410096073733**
Option 4 ID : **4410096073734**

Quick Sarkari

Q.3 Pipe A can fill a tank in 15 hours, pipe B can fill the same tank in 23 hours and pipe C can fill the same tank in 15 hours. The time taken by them to fill the same tank if they operate together is:

Ans

1. $10\frac{40}{61} hours$
2. $5\frac{40}{61} hours$
3. $9\frac{40}{61} hours$
4. $4\frac{40}{61} hours$

Question ID : **441009913332**
Option 1 ID : **4410093607581**
Option 2 ID : **4410093607579**
Option 3 ID : **4410093607580**
Option 4 ID : **4410093607582**

Q.4 Divide ₹5,978 into three parts such that half of the first part, one-fourth of the second part and one-eighth of the third part are equal. Find the third part (in ₹).

Ans

1. 3,616
2. 3,116
3. 3,216
4. 3,416

Question ID : **441009899488**
Option 1 ID : **4410093552023**
Option 2 ID : **4410093552024**
Option 3 ID : **4410093552025**
Option 4 ID : **4410093552022**

Q.5 A garrison of 1210 men has provisions for 13 days. How long (in days) will the provisions last if the garrison be increased by 363 men?

Ans

1. 20
2. 10
3. 30
4. 5

Question ID : **441009522979**
Option 1 ID : **4410092047336**
Option 2 ID : **4410092047335**
Option 3 ID : **4410092047337**
Option 4 ID : **4410092047338**

QuickSarkari.com | WhatsApp Channel | Telegram: t.me/quick_sarkari

Q.6 The distance between two stations is 350 km. Two trains start simultaneously from these stations on parallel tracks to cross each other. The speed of one train is 5 km/hour greater than that of the other. If the distance between the two trains after 2 hours is 20 km, find the speed (in km/hour) of the faster train.

Ans
✔ 1. 85
✘ 2. 82
✘ 3. 80
✘ 4. 88

Question ID : **4410095424 80**
Option 1 ID : **4410092125318**
Option 2 ID : **4410092125317**
Option 3 ID : **4410092125316**
Option 4 ID : **4410092125319**

Q.7 Find the area of a regular hexagon with a side length of 12 cm.

Ans
✘ 1. $216\sqrt{5}\ \text{cm}^2$
✘ 2. $116\sqrt{3}\ \text{cm}^2$
✔ 3. $216\sqrt{3}\ \text{cm}^2$
✘ 4. $116\sqrt{5}\ \text{cm}^2$

Question ID : **4410091537342**
Option 1 ID : **4410096072658**
Option 2 ID : **4410096072656**
Option 3 ID : **4410096072655**
Option 4 ID : **4410096072657**

Q.8 Two runners start together from the same point on a circular track of 300 m length and run in the same direction. Their speeds are 6 m/s and 4 m/s respectively. After how many seconds will they meet again at the starting point?

Ans
✘ 1. 250 s
✘ 2. 100 s
✘ 3. 220 s
✔ 4. 150 s

Question ID : **4410091451337**
Option 1 ID : **4410095733835**
Option 2 ID : **4410095733832**
Option 3 ID : **4410095733834**
Option 4 ID : **4410095733833**

QuickSarkari.com | WhatsApp Channel | Telegram: t.me/quick_sarkari

Q.9 Find the surface area of a cuboid with dimensions 6 m × 3 m × 0.25 m.

Ans
✗ 1. 35.5 m2
✗ 2. 30.5 m2
✓ 3. 40.5 m2
✗ 4. 42.5 m2

Question ID : **4410091537862**
Option 1 ID : **4410096074718**
Option 2 ID : **4410096074716**
Option 3 ID : **4410096074715**
Option 4 ID : **4410096074717**

Q.10 A hemispherical bowl has a radius of 7 cm. Find its curved surface area. (Use π = 22/7)

Ans
✗ 1. 154 cm²
✗ 2. 616 cm²
✗ 3. 462 cm²
✓ 4. 308 cm²

Question ID : **4410091472609**
Option 1 ID : **4410095818302**
Option 2 ID : **4410095818304**
Option 3 ID : **4410095818303**
Option 4 ID : **4410095818301**

Q.11 A man incurs a loss of 33% by selling an article for ₹134. If he sells it for ₹492, what will be his gain percentage?

Ans
✗ 1. 148%
✓ 2. 146%
✗ 3. 145%
✗ 4. 149%

Question ID : **441009537906**
Option 1 ID : **4410092107021**
Option 2 ID : **4410092107020**
Option 3 ID : **4410092107022**
Option 4 ID : **4410092107023**

Quick Sarkari

Q.12 After allowing a discount of 30% on its marked price, the value of a smart TV is ₹23,520. If no discount is allowed, then the shopkeeper gains 20%. The cost price of the smart TV is:

Ans
✗ 1. ₹27,988
✗ 2. ₹28,011
✗ 3. ₹27,944
✓ 4. ₹28,000

Question ID : **441009894380**
Option 1 ID : **4410093531593**
Option 2 ID : **4410093531592**
Option 3 ID : **4410093531591**
Option 4 ID : **4410093531590**

Q.13 A shopkeeper sets the marked price of a product at 8% over its cost price. If the shopkeeper offers a 5% discount on the marked price, what is her profit percentage?

Ans
✓ 1. 2.6%
✗ 2. 1.6%
✗ 3. 2.5%
✗ 4. 1.1%

Question ID : **4410091537010**
Option 1 ID : **4410096071331**
Option 2 ID : **4410096071332**
Option 3 ID : **4410096071333**
Option 4 ID : **4410096071334**

Q.14 The sum of perimeters of the six faces of a cuboid is 88 cm and the total surface area of the cuboid is 32 sq. cm. Find the longest possible length that can be kept inside the cuboid.

Ans
✗ 1. $\sqrt{79}$ cm
✓ 2. $\sqrt{89}$ cm
✗ 3. $\sqrt{73}$ cm
✗ 4. $\sqrt{83}$ cm

Question ID : **4410091443811**
Option 1 ID : **4410095703902**
Option 2 ID : **4410095703901**
Option 3 ID : **4410095703903**
Option 4 ID : **4410095703904**

QuickSarkari.com | WhatsApp Channel | Telegram: t.me/quick_sarkari

Q.15 The circumference of the base of a cylindrical vessel is 800 cm, and its height is 77 cm. How many litres of water can it hold?

$\left(\text{Use } \pi = \frac{22}{7}\right)$

Ans
✗ 1. 3,948
✓ 2. 3,920
✗ 3. 3,953
✗ 4. 3,914

Question ID : **441009600354**
Option 1 ID : **4410092356534**
Option 2 ID : **4410092356533**
Option 3 ID : **4410092356535**
Option 4 ID : **4410092356536**

Q.16 A worker earns ₹5,000 for working 10 hours. How much will he earn for working 26 hours at the same rate?

Ans
✗ 1. ₹12,500
✓ 2. ₹13,000
✗ 3. ₹13,500
✗ 4. ₹15,000

Question ID : **4410091537016**
Option 1 ID : **4410096071357**
Option 2 ID : **4410096071355**
Option 3 ID : **4410096071356**
Option 4 ID : **4410096071358**

Q.17 The sides of a rhombus are each 10 cm long, and one of its diagonals is 16 cm. What is the area of the rhombus?

Ans
✗ 1. 60 cm²
✓ 2. 96 cm²
✗ 3. 80 cm²
✗ 4. 120 cm²

Question ID : **4410091460034**
Option 1 ID : **4410095768325**
Option 2 ID : **4410095768327**
Option 3 ID : **4410095768326**
Option 4 ID : **4410095768328**

QuickSarkari.com | WhatsApp Channel | Telegram: t.me/quick_sarkari

Q.18 Divide ₹27,300 into three parts in such a way that half of the first part, one-fourth of the second part and one-eighth of the third part are equal. What is the value of the first part (in ₹)?

Ans
✗ 1. 3700
✗ 2. 3600
✓ 3. 3900
✗ 4. 4100

Question ID : **441009899493**
Option 1 ID : **4410093552043**
Option 2 ID : **4410093552045**
Option 3 ID : **4410093552042**
Option 4 ID : **4410093552044**

Q.19 A conical tent is of diameter 12 m at the base and its height is 8 m. Find its slant height.

Ans
✓ 1. 10 m
✗ 2. 12 m
✗ 3. 14 m
✗ 4. 8 m

Question ID : **4410091437528**
Option 1 ID : **4410095678828**
Option 2 ID : **4410095678829**
Option 3 ID : **4410095678830**
Option 4 ID : **4410095678831**

Q.20 A retailer buys an electronic item for ₹230. His overhead expenses are ₹20. He sells the electronic item for ₹400 and makes x% profit. The value of x is:

Ans
✗ 1. 40
✗ 2. 50
✓ 3. 60
✗ 4. 80

Question ID : **441009574172**
Option 1 ID : **4410092251810**
Option 2 ID : **4410092251811**
Option 3 ID : **4410092251808**
Option 4 ID : **4410092251809**

Section : **Test of Hindi Language and Comprehension**

QuickSarkari.com | WhatsApp Channel | Telegram: t.me/quick_sarkari

Q.1 'जिसका निवारण नहीं किया जा सके' वाक्यांश के लिए एक शब्द होगा-2971

Ans
✗ 1. दुश्वार
✗ 2. दुराग्रह
✓ 3. अनिवार्य
✗ 4. दुर्निवार

Question ID : **441009474726**
Option 1 ID : **4410091854319**
Option 2 ID : **4410091854320**
Option 3 ID : **4410091854318**
Option 4 ID : **4410091854317**

Q.2 दिए गए वाक्यांश के लिए सार्थक शब्द चुनें-
वह दृश्य, जिसे देखकर रोंगटे खड़े हो जाएँ

Ans
✗ 1. सुंदर
✗ 2. रचयिता
✗ 3. आंशिक
✓ 4. लोमहर्षक

Question ID : **4410091438110**
Option 1 ID : **4410095681139**
Option 2 ID : **4410095681137**
Option 3 ID : **4410095681140**
Option 4 ID : **4410095681138**

Q.3 'ठीकरा फोड़ना' मुहावरे का क्या अर्थ है?

Ans
✓ 1. दोष लगाना
✗ 2. व्यर्थ का झंझट
✗ 3. अति क्रुद्ध होना
✗ 4. सब उपाय कर डालना

Question ID : **4410091456637**
Option 1 ID : **4410095754867**
Option 2 ID : **4410095754869**
Option 3 ID : **4410095754866**
Option 4 ID : **4410095754868**

Quick Sarkari

Q.4 निम्नलिखित वाक्यों में उनके प्रथम तथा अन्तिम अंश संख्या 1 और 6 के अन्तर्गत दिए गए हैं। बीच वाले चार अंश (य), (र), (ल), (व) बिना क्रम के हैं। चारों अंशों को उचित क्रमानुसार व्यवस्थित कर सही विकल्प चुनिए।
(1) आप सबको धोखा
(य) धोखा दे सकते हो, पर
(र) खुद को नहीं
(ल) दे सकते, आप खुद को
(व) दे सकते हैं पर
(6) वक्त को नहीं दे सकते।4605

Ans
✗ 1. ल य र व
✗ 2. ल व य र
✗ 3. ल य व र
✓ 4. व र ल य

Question ID : **441009476360**
Option 1 ID : **4410091860853**
Option 2 ID : **4410091860855**
Option 3 ID : **4410091860854**
Option 4 ID : **4410091860856**

Q.5 दिए गए विकल्पों में से 'गांगेय' के लिए सार्थक वाक्यांश है-5286

Ans
✗ 1. पुण्य सलिला
✓ 2. गंगा से उत्पन्न
✗ 3. गंगा नदी
✗ 4. गंगा का तट

Question ID : **441009477041**
Option 1 ID : **4410091863580**
Option 2 ID : **4410091863579**
Option 3 ID : **4410091863578**
Option 4 ID : **4410091863577**

Q.6 दिए गए वाक्य को सही क्रम में लगाइए-
(1)सीधा संबंध (2)लोक कथाओं का (3)होता है (4)जन-मानस से

Ans
✓ 1. 2 1 4 3
✗ 2. 2 3 4 1
✗ 3. 3 4 2 1
✗ 4. 4 3 2 1

Question ID : **4410091438181**
Option 1 ID : **4410095681406**
Option 2 ID : **4410095681405**
Option 3 ID : **4410095681408**
Option 4 ID : **4410095681407**

Q.7 निम्नलिखित में से किस लोकोक्ति का अर्थ संगत नहीं है?

Ans
✗ 1. चमड़ी जाये पर दमड़ी ना जाये - बहुत कंजूस
✓ 2. घर खीर तो बाहर खीर - घर का कोई काम नहीं करना
✗ 3. घी कहाँ गया? खिचड़ी में - वस्तु का प्रयोग सही जगह हो गया
✗ 4. चाकरी में ना करी क्या - नौकरी में स्वामी की आज्ञा माननी पड़ती है

Question ID : **4410091455835**
Option 1 ID : **4410095751691**
Option 2 ID : **4410095751693**
Option 3 ID : **4410095751692**
Option 4 ID : **4410095751694**

Q.8 पर्यावरण प्रदूषण की वजह से सरकार की नीतियाँ <u>आलोचना के योग्य</u> हो गई हैं।

रेखांकित वाक्यांश के लिए सार्थक शब्द क्या है?

Ans
✗ 1. कर्तव्यच्युत
✗ 2. अलौकिक
✓ 3. आलोच्य
✗ 4. अग्रशोची

Question ID : **4410091456725**
Option 1 ID : **4410095755209**
Option 2 ID : **4410095755206**
Option 3 ID : **4410095755208**
Option 4 ID : **4410095755207**

Q.9 'जी भर आना' मुहावरे का क्या अर्थ है?

Ans
✗ 1. पेट भरना
✓ 2. दुखी होना
✗ 3. मन करना
✗ 4. वादा करना

Question ID : **4410091456604**
Option 1 ID : **4410095754739**
Option 2 ID : **4410095754738**
Option 3 ID : **4410095754740**
Option 4 ID : **4410095754741**

QuickSarkari.com | WhatsApp Channel | Telegram: t.me/quick_sarkari

Q.10 दिए गए वाक्य में रिक्त स्थान के लिए उपयुक्त क्रिया चुनें।
लड़का मिठाई लेकर ..... हुआ घर आया।

Ans
✗ 1. दौड़
✗ 2. दोड़ता
✓ 3. दौड़ता
✗ 4. दौड़ती

Question ID : **4410091452148**
Option 1 ID : **4410095737004**
Option 2 ID : **4410095737005**
Option 3 ID : **4410095737006**
Option 4 ID : **4410095737007**

Q.11 इस पर्वत की भव्य सुंदरता मन को मोहित कर लेती है। वाक्य में ..... विशेषण है।
दिए गए विकल्प में से विशेषण के उचित भेद को चुन कर वाक्य पूर्ण करें -

Ans
✗ 1. संख्यावाचक
✗ 2. परिमाणवाचक
✓ 3. गुणवाचक
✗ 4. सार्वनामिक

Question ID : **4410091456060**
Option 1 ID : **4410095752597**
Option 2 ID : **4410095752594**
Option 3 ID : **4410095752595**
Option 4 ID : **4410095752596**

Q.12 कारक के आधार पर निम्न वाक्य पूर्ण करें -

शिक्षक ने छात्र को कठिन प्रश्न ____ समाधान समझाया।2964

Ans
✗ 1. के
✗ 2. की
✓ 3. का
✗ 4. कि

Question ID : **441009449324**
Option 1 ID : **4410091755966**
Option 2 ID : **4410091755965**
Option 3 ID : **4410091755967**
Option 4 ID : **4410091755968**

QuickSarkari.com | WhatsApp Channel | Telegram: t.me/quick_sarkari

Q.13 निम्नलिखित वाक्यांश के लिए सार्थक शब्द चुनिये
कठिनाइयों से भागने की प्रवृत्ति

Ans
✗ 1. आगामी
✗ 2. गतिमयता
✓ 3. पलायनवाद
✗ 4. उद्देश्यहीनता

Question ID : **4410091489692**
Option 1 ID : **4410095884801**
Option 2 ID : **4410095884803**
Option 3 ID : **4410095884804**
Option 4 ID : **4410095884802**

Q.14 मेहमान कम खा रहे हैं। वाक्य में ..... क्रिया-विशेषण है।
दिए गए विकल्प में से क्रिया-विशेषण के उचित भेद को चुन कर वाक्य पूर्ण करें -

Ans
✗ 1. परिमाणवाचक
✗ 2. स्थानवाचक
✓ 3. रीतिवाचक
✗ 4. कालवाचक

Question ID : **4410091456056**
Option 1 ID : **4410095752581**
Option 2 ID : **4410095752578**
Option 3 ID : **4410095752579**
Option 4 ID : **4410095752580**

Q.15 दिए गए लोकोक्ति का सही अर्थ बताइए।
घर में नहीं दाने बुढ़िया चली भुनाने5188

Ans
✗ 1. लाभ ही लाभ होना
✓ 2. झूठा दिखावा करना
✗ 3. बहुत कंजूस होना
✗ 4. अचानक सफलता मिलना

Question ID : **441009445468**
Option 1 ID : **4410091740554**
Option 2 ID : **4410091740555**
Option 3 ID : **4410091740553**
Option 4 ID : **4410091740556**

QuickSarkari.com | WhatsApp Channel | Telegram: t.me/quick_sarkari

Q.16 रेखांकित कारक चिह्न के आधार पर कारक के उचित भेद का चुनाव करें-
गाँव के लोग बहुत सहृदय हैं। वाक्य में ..... कारक है।

Ans
✗ 1. करण कारक
✗ 2. अधिकरण कारक
✗ 3. संप्रदान कारक
✓ 4. संबंध कारक

Question ID : **4410091456105**
Option 1 ID : **4410095752773**
Option 2 ID : **4410095752771**
Option 3 ID : **4410095752772**
Option 4 ID : **4410095752770**

Q.17 'कच्चा चिट्ठा खोलना' मुहावरे का क्या अर्थ है?

Ans
✗ 1. दरवाज़ा खोलना
✗ 2. खाना ठीक से न पकाना
✗ 3. किताब खोलना
✓ 4. सब भेद खोल देना

Question ID : **4410091456542**
Option 1 ID : **4410095754500**
Option 2 ID : **4410095754499**
Option 3 ID : **4410095754498**
Option 4 ID : **4410095754501**

Q.18 दिए गए वाक्य में रिक्त स्थान के लिए उपयुक्त क्रिया चुनें-
ठिकाने पर पहुँच कर उसने चैन की ..... ।

Ans
✗ 1. साँस की
✓ 2. साँस ली
✗ 3. साँस करी
✗ 4. साँस चली

Question ID : **4410091452167**
Option 1 ID : **4410095737082**
Option 2 ID : **4410095737083**
Option 3 ID : **4410095737080**
Option 4 ID : **4410095737081**

Q.19 'पाँच पंच मिल कीजे काजा, हारे-जीते कछु नहीं लाजा' लोकोक्ति का अर्थ क्या है?

Ans
✓ 1. मिलकर काम करने पर हार-जीत की जिम्मेदारी एक पर नहीं आती।
✗ 2. अपने घर में सब सीधे होते हैं, बाहर अकड़ दिखते हैं।
✗ 3. भलाई का काम करके फल की इच्छा कभी मत करो।
✗ 4. जब आवश्यकता नहीं होती तब अच्छी चीज़ भी बुरी लगती है।

Question ID : **4410091455809**
Option 1 ID : **4410095751579**
Option 2 ID : **4410095751581**
Option 3 ID : **4410095751580**
Option 4 ID : **4410095751582**

QuickSarkari.com | WhatsApp Channel | Telegram: t.me/quick_sarkari

Q.20 अध्यापिका ने बच्चों से निबंध लिखवाया में कौन सी क्रिया है?2721

Ans ✗ 1. सकर्मक

✗ 2. सामान्य

✗ 3. संयुक्त

✓ 4. प्रेरणार्थक

Question ID : **441009449081**
Option 1 ID : **4410091754996**
Option 2 ID : **4410091754993**
Option 3 ID : **4410091754994**
Option 4 ID : **4410091754995**

Section : **Test of Hindi Language and Comprehension1**

Q.1 दिए गए वाक्य के किस भाग में त्रुटि है?
मैं आधी अस्तीन की कमीज़ पहनता हूँ।

Ans ✓ 1. अस्तीन की

✗ 2. पहनता हूँ।

✗ 3. कमीज़

✗ 4. मैं आधी

Question ID : **4410091456799**
Option 1 ID : **4410095755503**
Option 2 ID : **4410095755505**
Option 3 ID : **4410095755504**
Option 4 ID : **4410095755502**

Q.2 नीचे दिए गए रेखांकित शब्द के लिए उपयुक्त विलोम शब्द चुनकर रिक्त स्थान पूर्ण कीजिए।
जो व्यक्ति काम करने में असमर्थ है, उसे <u>अशक्त</u> कहते हैं; और जो हर कार्य कर सकता है, वह _____ कहलाता है।

Ans ✗ 1. निर्बल

✗ 2. निष्क्रिय

✗ 3. अकर्म

✓ 4. सशक्त

Question ID : **4410091435377**
Option 1 ID : **4410095670037**
Option 2 ID : **4410095670039**
Option 3 ID : **4410095670038**
Option 4 ID : **4410095670036**

QuickSarkari.com | WhatsApp Channel | Telegram: t.me/quick_sarkari

Q.3 निम्नलिखित वाक्य में रेखांकित शब्द का पर्यायवाची शब्द कौन-सा है?
तुम्हारा मामला थोड़ा <u>जटिल</u> है।

Ans
✔ 1. पेचीदा
✘ 2. मेदिनी
✘ 3. बलिष्ठ
✘ 4. अमिय

Question ID : **4410091456874**
Option 1 ID : **4410095755799**
Option 2 ID : **4410095755801**
Option 3 ID : **4410095755800**
Option 4 ID : **4410095755798**

Q.4 दिए गए वाक्य के किस भाग में त्रुटि है?
यह औषधि केवल परीक्षित सूत्रों के आधार पर तैयार की गई है, इसलिए इसके दुष्प्रभाव न्युतनम हैं।

Ans
✔ 1. न्युतनम
✘ 2. औषधि
✘ 3. दुष्प्रभाव
✘ 4. परीक्षित

Question ID : **4410091456497**
Option 1 ID : **4410095754325**
Option 2 ID : **4410095754322**
Option 3 ID : **4410095754324**
Option 4 ID : **4410095754323**

Q.5 निम्नलिखित वाक्य में रेखांकित शब्द का विलोम शब्द कौन सा है?
यह इमारत बहुत <u>प्राचीन</u> लग रही है।

Ans
✘ 1. सुंदर
✘ 2. तृप्त
✔ 3. नवीन
✘ 4. छोटी

Question ID : **4410091456917**
Option 1 ID : **4410095755972**
Option 2 ID : **4410095755970**
Option 3 ID : **4410095755973**
Option 4 ID : **4410095755971**

QuickSarkari.com | WhatsApp Channel | Telegram: t.me/quick_sarkari

Q.6 किसी मुद्दे पर एकांगी दृष्टिकोण अपनाना सही निर्णय लेने में बाधक हो सकता है।

वाक्य में प्रयुक्त एकांगी शब्द का विलोम क्या है।

Ans
✔ 1. सर्वांगीण
✘ 2. इतिहास
✘ 3. आंशिक
✘ 4. पक्षपाती

Question ID : **4410091455298**
Option 1 ID : **4410095749488**
Option 2 ID : **4410095749487**
Option 3 ID : **4410095749485**
Option 4 ID : **4410095749486**

Q.7 निम्नलिखित विकल्पों में से शुद्ध वर्तनी वाले वाक्य का चयन कीजिए।

Ans
✘ 1. वह अब निरोग है।
✔ 2. वह अब नीरोग है।
✘ 3. वह अब निहरोग है।
✘ 4. वह अन निःरोग है।

Question ID : **4410091452211**
Option 1 ID : **4410095737253**
Option 2 ID : **4410095737252**
Option 3 ID : **4410095737255**
Option 4 ID : **4410095737254**

Q.8 निम्नलिखित वाक्य में रेखांकित शब्द का विलोम शब्द कौन सा है?
चमेली को <u>निंदा</u> करने में बहुत आनंद आता है।

Ans
✘ 1. निंद्रा
✔ 2. स्तुति
✘ 3. स्मृति
✘ 4. आराम

Question ID : **4410091456994**
Option 1 ID : **4410095756279**
Option 2 ID : **4410095756281**
Option 3 ID : **4410095756282**
Option 4 ID : **4410095756280**

QuickSarkari.com | WhatsApp Channel | Telegram: t.me/quick_sarkari

Q.9 रात का तिमिर धीरे-धीरे समाप्त हो रहा था।

वाक्य में प्रयुक्त तिमिर शब्द का विलोम क्या है।

Ans
✗ 1. अपर्णा
✗ 2. वसुधा
✗ 3. दीप्ति
✓ 4. आलोक

Question ID : **4410091455279**
Option 1 ID : **4410095749411**
Option 2 ID : **4410095749410**
Option 3 ID : **4410095749409**
Option 4 ID : **4410095749412**

Q.10 दिए गए वाक्य के किस भाग में त्रुटि है?
पुरातत्वविदों ने जान्हवी के किनारे पाए गए अवशेषों से प्राचीन सभ्यता की झलक पाई।

Ans
✗ 1. सभ्यता
✗ 2. अवशेषों
✓ 3. जान्हवी
✗ 4. पुरातत्वविदों

Question ID : **4410091456477**
Option 1 ID : **4410095754249**
Option 2 ID : **4410095754248**
Option 3 ID : **4410095754247**
Option 4 ID : **4410095754246**

Comprehension:

दिए गए गद्यांश के आधार पर पूछे गए प्रश्न का उत्तर दीजिए।
उपभोक्तावाद ने जीवन के हर क्षेत्र को प्रभावित किया है यहाँ तक की शिक्षा, संस्कृति, सामाजिक और पारिवारिक संबंध भी इसके दायरे में आ गए हैं। उपभोक्तावाद की शुरुआत का श्रेय प्राय: संयुक्त राज्य अमेरिका को दिया जाता है। यह माना जाता है कि अमेरिकी समाज उपभोक्ता समाज है और अमेरिकी राजनीति उपभोक्तावाद को विश्व भर में फैलाने में सर्वाधिक सक्रिय रही है। उपभोक्तावाद के विस्तार को अमेरिकीकरण के तौर पर भी देखा जाता है, लेकिन उपभोक्तावाद को इस रूप में देखना उचित नहीं है। उपभोक्तावाद की प्रवृत्ति प्रत्येक देश में वहाँ की स्थितियों के अनुरूप विकसित हुई है लेकिन उसकी सामान्य विशेषताओं को प्राय: सभी जगह देखा जा सकता है। उपभोक्ता समाज श्रेणीबद्धता को निर्मित करता है। श्रेणीबद्धता उपभोक्ताओं की सामाजिक हैसियत को निर्धारित करती है। अपनी हैसियत बनाए रखने के लिए व्यक्ति ऐसी वस्तुओं और सेवाओं को हासिल करने का प्रयत्न करता है जो दूसरों के पास न हों। अपने को दूसरों से अलग और श्रेष्ठ बताना उपभोक्ता संस्कृति का आधारभूत नियम बन जाता है।

SubQuestion No : 11

Q.11 उपर्युक्त गद्यांश के आधार पर एक का सम्बंध 'विस्तार' से नहीं है?

Ans
✓ 1. असम्बद्ध
✗ 2. अर्ज
✗ 3. चौड़ाई
✗ 4. उन्नति

Question ID : **441009438491**
Option 1 ID : **4410091712857**
Option 2 ID : **4410091712854**
Option 3 ID : **4410091712855**
Option 4 ID : **4410091712856**

Comprehension:

दिए गए गद्यांश के आधार पर पूछे गए प्रश्न का उत्तर दीजिए।
उपभोक्तावाद ने जीवन के हर क्षेत्र को प्रभावित किया है यहाँ तक की शिक्षा, संस्कृति, सामाजिक और पारिवारिक संबंध भी इसके दायरे में आ गए हैं। उपभोक्तावाद की शुरुआत का श्रेय प्राय: संयुक्त राज्य अमेरिका को दिया जाता है। यह माना जाता है कि अमेरिकी समाज उपभोक्ता समाज है और अमेरिकी राजनीति उपभोक्तावाद को विश्व भर में फैलाने में सर्वाधिक सक्रिय रही है। उपभोक्तावाद के विस्तार को अमेरिकीकरण के तौर पर भी देखा जाता है, लेकिन उपभोक्तावाद को इस रूप में देखना उचित नहीं है। उपभोक्तावाद की प्रवृत्ति प्रत्येक देश में वहाँ की स्थितियों के अनुरूप विकसित हुई है लेकिन उसकी सामान्य विशेषताओं को प्राय: सभी जगह देखा जा सकता है। उपभोक्ता समाज श्रेणीबद्धता को निर्मित करता है। श्रेणीबद्धता उपभोक्ताओं की सामाजिक हैसियत को निर्धारित करती है। अपनी हैसियत बनाए रखने के लिए व्यक्ति ऐसी वस्तुओं और सेवाओं को हासिल करने का प्रयत्न करता है जो दूसरों के पास न हों। अपने को दूसरों से अलग और श्रेष्ठ बताना उपभोक्ता संस्कृति का आधारभूत नियम बन जाता है।

SubQuestion No : 12

Q.12 उपर्युक्त गद्यांश का केन्द्रीय विषय क्या है?

Ans

✗ 1. अमेरिकीकरण और बाजारवाद

✗ 2. सांस्कृतिक साम्राज्यवाद और अमेरिका

✗ 3. राजनीति और उपभोक्तावाद

✓ 4. उपभोक्तावाद के विविध आयाम

Question ID : **441009438492**
Option 1 ID : **4410091712861**
Option 2 ID : **4410091712858**
Option 3 ID : **4410091712860**
Option 4 ID : **4410091712859**

Comprehension:

दिए गए गद्यांश के आधार पर पूछे गए प्रश्न का उत्तर दीजिए।
उपभोक्तावाद ने जीवन के हर क्षेत्र को प्रभावित किया है यहाँ तक की शिक्षा, संस्कृति, सामाजिक और पारिवारिक संबंध भी इसके दायरे में आ गए हैं। उपभोक्तावाद की शुरुआत का श्रेय प्राय: संयुक्त राज्य अमेरिका को दिया जाता है। यह माना जाता है कि अमेरिकी समाज उपभोक्ता समाज है और अमेरिकी राजनीति उपभोक्तावाद को विश्व भर में फैलाने में सर्वाधिक सक्रिय रही है। उपभोक्तावाद के विस्तार को अमेरिकीकरण के तौर पर भी देखा जाता है, लेकिन उपभोक्तावाद को इस रूप में देखना उचित नहीं है। उपभोक्तावाद की प्रवृत्ति प्रत्येक देश में वहाँ की स्थितियों के अनुरूप विकसित हुई है लेकिन उसकी सामान्य विशेषताओं को प्राय: सभी जगह देखा जा सकता है। उपभोक्ता समाज श्रेणीबद्धता को निर्मित करता है। श्रेणीबद्धता उपभोक्ताओं की सामाजिक हैसियत को निर्धारित करती है। अपनी हैसियत बनाए रखने के लिए व्यक्ति ऐसी वस्तुओं और सेवाओं को हासिल करने का प्रयत्न करता है जो दूसरों के पास न हों। अपने को दूसरों से अलग और श्रेष्ठ बताना उपभोक्ता संस्कृति का आधारभूत नियम बन जाता है।

SubQuestion No : 13

Q.13 उपर्युक्त गद्यांश के आधार पर 'प्रवृत्ति' का विलोम क्या होगा?

Ans

✗ 1. प्रवंचक

✓ 2. निवृत्ति

✗ 3. प्रमादी

✗ 4. प्रमुदित

Question ID : **441009438493**
Option 1 ID : **4410091712863**
Option 2 ID : **4410091712862**
Option 3 ID : **4410091712865**
Option 4 ID : **4410091712864**

Comprehension:

दिए गए गद्यांश के आधार पर पूछे गए प्रश्न का उत्तर दीजिए।
उपभोक्तावाद ने जीवन के हर क्षेत्र को प्रभावित किया है यहाँ तक की शिक्षा, संस्कृति, सामाजिक और पारिवारिक संबंध भी इसके दायरे में आ गए हैं। उपभोक्तावाद की शुरुआत का श्रेय प्राय: संयुक्त राज्य अमेरिका को दिया जाता है। यह माना जाता है कि अमेरिकी समाज उपभोक्ता समाज है और अमेरिकी राजनीति उपभोक्तावाद को विश्व भर में फैलाने में सर्वाधिक सक्रिय रही है। उपभोक्तावाद के विस्तार को अमेरिकीकरण के तौर पर भी देखा जाता है, लेकिन उपभोक्तावाद को इस रूप में देखना उचित नहीं है। उपभोक्तावाद की प्रवृत्ति प्रत्येक देश में वहाँ की स्थितियों के अनुरूप विकसित हुई है लेकिन उसकी सामान्य विशेषताओं को प्राय: सभी जगह देखा जा सकता है। उपभोक्ता समाज श्रेणीबद्धता को निर्मित करता है। श्रेणीबद्धता उपभोक्ताओं की सामाजिक हैसियत को निर्धारित करती है। अपनी हैसियत बनाए रखने के लिए व्यक्ति ऐसी वस्तुओं और सेवाओं को हासिल करने का प्रयत्न करता है जो दूसरों के पास न हों। अपने को दूसरों से अलग और श्रेष्ठ बताना उपभोक्ता संस्कृति का आधारभूत नियम बन जाता है।

SubQuestion No : 14

Q.14 किसकी प्रवृत्ति प्रत्येक देश में वहाँ की स्थितियों के अनुरूप विकसित होती है?

Ans

✗ 1. अनुभववाद की|

✗ 2. परिवारवाद की|

✗ 3. सफलता की|

✓ 4. उपभोक्तावाद की |

Question ID : **441009438494**
Option 1 ID : **4410091712868**
Option 2 ID : **4410091712867**
Option 3 ID : **4410091712869**
Option 4 ID : **4410091712866**

Comprehension:

दिए गए गद्यांश के आधार पर पूछे गए प्रश्न का उत्तर दीजिए।
उपभोक्तावाद ने जीवन के हर क्षेत्र को प्रभावित किया है यहाँ तक की शिक्षा, संस्कृति, सामाजिक और पारिवारिक संबंध भी इसके दायरे में आ गए हैं। उपभोक्तावाद की शुरुआत का श्रेय प्राय: संयुक्त राज्य अमेरिका को दिया जाता है। यह माना जाता है कि अमेरिकी समाज उपभोक्ता समाज है और अमेरिकी राजनीति उपभोक्तावाद को विश्व भर में फैलाने में सर्वाधिक सक्रिय रही है। उपभोक्तावाद के विस्तार को अमेरिकीकरण के तौर पर भी देखा जाता है, लेकिन उपभोक्तावाद को इस रूप में देखना उचित नहीं है। उपभोक्तावाद की प्रवृत्ति प्रत्येक देश में वहाँ की स्थितियों के अनुरूप विकसित हुई है लेकिन उसकी सामान्य विशेषताओं को प्राय: सभी जगह देखा जा सकता है। उपभोक्ता समाज श्रेणीबद्धता को निर्मित करता है। श्रेणीबद्धता उपभोक्ताओं की सामाजिक हैसियत को निर्धारित करती है। अपनी हैसियत बनाए रखने के लिए व्यक्ति ऐसी वस्तुओं और सेवाओं को हासिल करने का प्रयत्न करता है जो दूसरों के पास न हों। अपने को दूसरों से अलग और श्रेष्ठ बताना उपभोक्ता संस्कृति का आधारभूत नियम बन जाता है।

SubQuestion No : 15

Q.15 उपभोक्तावाद की शुरुआत किस देश से हुई?

Ans

✗ 1. भारत

✓ 2. अमेरिका

✗ 3. रूस

✗ 4. जापान

Question ID : **441009438495**
Option 1 ID : **4410091712870**
Option 2 ID : **4410091712873**
Option 3 ID : **4410091712872**
Option 4 ID : **4410091712871**

Comprehension:

दिए गए गद्यांश के आधार पर पूछे गए प्रश्नों का उत्तर दीजिए-
स्मृति एक ऐसा अनुभव है जो अपने समय के यथार्थ को हमारा आज का यथार्थ बनाती है। आज के मूल्यों से टकरा कर एक मोहभंग का अनुभव रचती है। हिन्दी कहानी की वयस्क हो गई यात्रा में कितने ही पड़ाव हैं जिनकी स्मृति हमें आज की भागम-भाग से निकल कर कुछ सुस्ता लेने का मोह जगाती है। लेकिन 'रेणु' की स्मृति आज के लगभग हर यथार्थ को अपदस्थ करती हुई निस्संकोच एक मोहभंग की मन:स्थिति निर्मित करती है। इन्सान के अतीत को उसके भविष्य से अलग करके देखने की कला अभी आविष्कृत नहीं हुई है। 'रेणु' के गाँव, उनके मृदंगिया और हीरामन हमारे लिए एक स्मृति मात्र नहीं हैं। आज की भागमभाग, चीजों की दौड़ और हर चीज की वासना यानी जो कुछ भी जितना ज़्यादा है, उस चीज की उतनी ही वासना और अधिक मन दु:खाती है, जब हीरामन और मृदंगिया सरीखे सामने आते हैं। यही स्मृति हमारे आज के यथार्थ को अतिरिक्त क्रूरता भी देती है और एक आभास रचती है अपूर्णता का। उनकी स्मृति से आज के बाजार की व्यर्थता और क्रूर हो उठती है।

SubQuestion No : 16

Q.16 प्रस्तुत गद्यांश का उचित शीर्षक क्या होगा?

Ans

✗ 1. विज्ञान के आविष्कार

✗ 2. भारतीय किसान

✗ 3. सूचना और प्रौद्योगिकी

✓ 4. स्मृति और यथार्थ

Question ID : **441009438521**
Option 1 ID : **4410091712956**
Option 2 ID : **4410091712957**
Option 3 ID : **4410091712955**
Option 4 ID : **4410091712954**

Comprehension:

दिए गए गद्यांश के आधार पर पूछे गए प्रश्नों का उत्तर दीजिए-
स्मृति एक ऐसा अनुभव है जो अपने समय के यथार्थ को हमारा आज का यथार्थ बनाती है। आज के मूल्यों से टकरा कर एक मोहभंग का अनुभव रचती है। हिन्दी कहानी की वयस्क हो गई यात्रा में कितने ही पड़ाव हैं जिनकी स्मृति हमें आज की भागम-भाग से निकल कर कुछ सुस्ता लेने का मोह जगाती है। लेकिन 'रेणु' की स्मृति आज के लगभग हर यथार्थ को अपदस्थ करती हुई निस्संकोच एक मोहभंग की मन:स्थिति निर्मित करती है। इन्सान के अतीत को उसके भविष्य से अलग करके देखने की कला अभी आविष्कृत नहीं हुई है। 'रेणु' के गाँव, उनके मृदंगिया और हीरामन हमारे लिए एक स्मृति मात्र नहीं हैं। आज की भागमभाग, चीजों की दौड़ और हर चीज की वासना यानी जो कुछ भी जितना ज़्यादा है, उस चीज की उतनी ही वासना और अधिक मन दु:खाती है, जब हीरामन और मृदंगिया सरीखे सामने आते हैं। यही स्मृति हमारे आज के यथार्थ को अतिरिक्त क्रूरता भी देती है और एक आभास रचती है अपूर्णता का। उनकी स्मृति से आज के बाजार की व्यर्थता और क्रूर हो उठती है।

SubQuestion No : 17

Q.17 वह क्या है जो समय के यथार्थ को हमारा आज का यथार्थ बनाती है?

Ans

✓ 1. स्मृति

✗ 2. प्रेम

✗ 3. भविष्य

✗ 4. वर्तमान

Question ID : **441009438522**
Option 1 ID : **4410091712958**
Option 2 ID : **4410091712961**
Option 3 ID : **4410091712959**
Option 4 ID : **4410091712960**

QuickSarkari.com | WhatsApp Channel | Telegram: t.me/quick_sarkari

Comprehension:

दिए गए गद्यांश के आधार पर पूछे गए प्रश्नों का उत्तर दीजिए-
स्मृति एक ऐसा अनुभव है जो अपने समय के यथार्थ को हमारा आज का यथार्थ बनाती है। आज के मूल्यों से टकरा कर एक मोहभंग का अनुभव रचती है। हिन्दी कहानी की वयस्क हो गई यात्रा में कितने ही पड़ाव हैं जिनकी स्मृति हमें आज की भागम-भाग से निकल कर कुछ सुस्ता लेने का मोह जगाती है। लेकिन 'रेणु' की स्मृति आज के लगभग हर यथार्थ को अपदस्थ करती हुई निस्संकोच एक मोहभंग की मन:स्थिति निर्मित करती है। इन्सान के अतीत को उसके भविष्य से अलग करके देखने की कला अभी आविष्कृत नहीं हुई है। 'रेणु' के गाँव, उनके मृदंगिया और हीरामन हमारे लिए एक स्मृति मात्र नहीं हैं। आज की भागमभाग, चीजों की दौड़ और हर चीज की वासना यानी जो कुछ भी जितना ज़्यादा है, उस चीज की उतनी ही वासना और अधिक मन दु:खाती है, जब हीरामन और मृदंगिया सरीखे सामने आते हैं। यही स्मृति हमारे आज के यथार्थ को अतिरिक्त क्रूरता भी देती है और एक आभास रचती है अपूर्णता का। उनकी स्मृति से आज के बाजार की व्यर्थता और क्रूर हो उठती है।

SubQuestion No : 18

Q.18 निम्नलिखित में से 'स्मृति' का पर्यायवाची शब्द क्या है?

Ans

✗ 1. मिथक

✓ 2. याद

✗ 3. सत्य

✗ 4. मित्र

Question ID : **441009438523**
Option 1 ID : **4410091712963**
Option 2 ID : **4410091712962**
Option 3 ID : **4410091712964**
Option 4 ID : **4410091712965**

Comprehension:

दिए गए गद्यांश के आधार पर पूछे गए प्रश्नों का उत्तर दीजिए-
स्मृति एक ऐसा अनुभव है जो अपने समय के यथार्थ को हमारा आज का यथार्थ बनाती है। आज के मूल्यों से टकरा कर एक मोहभंग का अनुभव रचती है। हिन्दी कहानी की वयस्क हो गई यात्रा में कितने ही पड़ाव हैं जिनकी स्मृति हमें आज की भागम-भाग से निकल कर कुछ सुस्ता लेने का मोह जगाती है। लेकिन 'रेणु' की स्मृति आज के लगभग हर यथार्थ को अपदस्थ करती हुई निस्संकोच एक मोहभंग की मन:स्थिति निर्मित करती है। इन्सान के अतीत को उसके भविष्य से अलग करके देखने की कला अभी आविष्कृत नहीं हुई है। 'रेणु' के गाँव, उनके मृदंगिया और हीरामन हमारे लिए एक स्मृति मात्र नहीं हैं। आज की भागमभाग, चीजों की दौड़ और हर चीज की वासना यानी जो कुछ भी जितना ज़्यादा है, उस चीज की उतनी ही वासना और अधिक मन दु:खाती है, जब हीरामन और मृदंगिया सरीखे सामने आते हैं। यही स्मृति हमारे आज के यथार्थ को अतिरिक्त क्रूरता भी देती है और एक आभास रचती है अपूर्णता का। उनकी स्मृति से आज के बाजार की व्यर्थता और क्रूर हो उठती है।

SubQuestion No : 19

Q.19 निम्नलिखित में से 'क्रूरता' का विलोम शब्द क्या होगा?

Ans

✓ 1. दयालुता

✗ 2. कर्मचारी

✗ 3. निर्दयी

✗ 4. दुखी

Question ID : **441009438524**
Option 1 ID : **4410091712966**
Option 2 ID : **4410091712969**
Option 3 ID : **4410091712967**
Option 4 ID : **4410091712968**

Comprehension:

दिए गए गद्यांश के आधार पर पूछे गए प्रश्नों का उत्तर दीजिए-
स्मृति एक ऐसा अनुभव है जो अपने समय के यथार्थ को हमारा आज का यथार्थ बनाती है। आज के मूल्यों से टकरा कर एक मोहभंग का अनुभव रचती है। हिन्दी कहानी की वयस्क हो गई यात्रा में कितने ही पड़ाव हैं जिनकी स्मृति हमें आज की भागम-भाग से निकल कर कुछ सुस्ता लेने का मोह जगाती है। लेकिन 'रेणु' की स्मृति आज के लगभग हर यथार्थ को अपदस्थ करती हुई निस्संकोच एक मोहभंग की मन:स्थिति निर्मित करती है। इन्सान के अतीत को उसके भविष्य से अलग करके देखने की कला अभी आविष्कृत नहीं हुई है। 'रेणु' के गाँव, उनके मृदंगिया और हीरामन हमारे लिए एक स्मृति मात्र नहीं हैं। आज की भागमभाग, चीजों की दौड़ और हर चीज की वासना यानी जो कुछ भी जितना ज़्यादा है, उस चीज की उतनी ही वासना और अधिक मन दु:खाती है, जब हीरामन और मृदंगिया सरीखे सामने आते हैं। यही स्मृति हमारे आज के यथार्थ को अतिरिक्त क्रूरता भी देती है और एक आभास रचती है अपूर्णता का। उनकी स्मृति से आज के बाजार की व्यर्थता और क्रूर हो उठती है।

SubQuestion No : 20

Q.20 प्रस्तुत गद्यांश का केन्द्रीय विषय क्या है?

Ans

✗ 1. आर्थिक असमानता की समस्या

✗ 2. आधुनिक समाज में विज्ञान की प्रगति

✓ 3. अतीत की स्मृतियों के माध्यम से वर्तमान यथार्थ का मूल्यांकन

✗ 4. ग्रामीण जीवन की सुंदरता

Question ID : **441009438525**
Option 1 ID : **4410091712971**
Option 2 ID : **4410091712970**
Option 3 ID : **4410091712973**
Option 4 ID : **4410091712972**

Section : **Test of English Language and Comprehension**

Q.1 Choose the most appropriate option to complete the direct speech of the sentence.

The teacher asked the student how many students were participating from his class.
The _____ student, "How many students _____ class?"

Ans

✓ 1. teacher said to the / are participating from your

✗ 2. teacher asked / are participating in their

✗ 3. teacher told / were participating from my

✗ 4. teacher says to the / have been participating in your

Question ID : **4410091511580**
Option 1 ID : **4410095970385**
Option 2 ID : **4410095970387**
Option 3 ID : **4410095970386**
Option 4 ID : **4410095970388**

QuickSarkari.com | WhatsApp Channel | Telegram: t.me/quick_sarkari

Q.2 Complete the following sentence by choosing the correct option.

There was ___ engineer nearby who volunteered as ___ mentor for local robotics students.

Ans
✗ 1. an, the
✓ 2. an, a
✗ 3. the, a
✗ 4. a, a

Question ID : **4410091516330**
Option 1 ID : **4410095988715**
Option 2 ID : **4410095988714**
Option 3 ID : **4410095988716**
Option 4 ID : **4410095988713**

Q.3 In the following question, you are required to fill in the blanks by choosing the option that best completes the sentence.
Despite attending multiple revision sessions and receiving personalised guidance from her mentor, she ____ could not grasp the underlying concept clearly, and the final explanation provided by the panel has ____ failed to resolve her confusion.

Ans
✗ 1. seldom; still
✗ 2. hardly; already
✓ 3. still; also
✗ 4. already; rarely

Question ID : **4410091528942**
Option 1 ID : **4410096038900**
Option 2 ID : **4410096038901**
Option 3 ID : **4410096038902**
Option 4 ID : **4410096038899**

Q.4 Parts of a sentence are given below in jumbled order. Arrange the parts in the correct order to form a meaningful and coherent sentence.

A. to India for such
B. while I understand
C. procedures is a huge burden
D. heart transplants are complex
E. and expensive, travelling

Ans
✗ 1. AEDBC
✓ 2. BDEAC
✗ 3. BACED
✗ 4. CADBE

Question ID : **441009430482**
Option 1 ID : **4410091681446**
Option 2 ID : **4410091681448**
Option 3 ID : **4410091681447**
Option 4 ID : **4410091681449**

Q.5 **Choose the correct passive voice of the following sentence.**

You may give away the material without using it.

Ans
✔ 1. The material may be given away without being used.

✘ 2. The material may be given away without use.

✘ 3. The material might be given away without using it.

✘ 4. The material might have been given away without being used.

Question ID : **4410091511791**
Option 1 ID : **4410095971248**
Option 2 ID : **4410095971245**
Option 3 ID : **4410095971246**
Option 4 ID : **4410095971247**

Q.6 **Select the most appropriate option to fill in the blank.**
She _____ a piece of cake to check whether _____ or not.

Ans
✘ 1. has been eating / it tasted fresh

✘ 2. had eaten / it tastes fresh

✔ 3. is eating / it tastes fresh

✘ 4. eats / it tasted fresh

Question ID : **4410091511537**
Option 1 ID : **4410095970206**
Option 2 ID : **4410095970207**
Option 3 ID : **4410095970208**
Option 4 ID : **4410095970205**

Q.7 **In the given question, a statement is divided into different segments. Rearrange all the segments to form a meaningful sentence.**
primarily to undertake an extensive exploration of the city (A) / he travelled to Jaipur (B) / the renowned astronomical edifice (C) / and to behold (D) / the illustrious Jantar Mantar complex (E)

Ans
✘ 1. B–C–A–D–E

✘ 2. C–E–B–A–D

✔ 3. B–A–D–C–E

✘ 4. A–B–D–C–E

Question ID : **4410091567583**
Option 1 ID : **4410096191633**
Option 2 ID : **4410096191635**
Option 3 ID : **4410096191634**
Option 4 ID : **4410096191632**

QuickSarkari.com | WhatsApp Channel | Telegram: t.me/quick_sarkari

Q.8 **Select the option that can be used as a one-word substitute for the underlined group of words.**
A requirement that is so fundamentally necessary or crucial that the overall system, process, or objective would fail to function effectively in its absence

Ans
✔ 1. Indispensable
✘ 2. Contingent
✘ 3. Supplementary
✘ 4. Peripheral

Question ID : **4410091527841**
Option 1 ID : **4410096034565**
Option 2 ID : **4410096034564**
Option 3 ID : **4410096034566**
Option 4 ID : **4410096034563**

Q.9 **Choose the correct form of active voice for the following sentence from the options.**
The final report was submitted by the team before the deadline yesterday afternoon.

Ans
✔ 1. The team submitted the final report before the deadline yesterday afternoon.
✘ 2. The team has submitted the final report before the deadline yesterday afternoon.
✘ 3. The team will submit the final report before the deadline yesterday afternoon.
✘ 4. The team had submitted the final report before the deadline yesterday afternoon.

Question ID : **4410091516623**
Option 1 ID : **4410095989901**
Option 2 ID : **4410095989903**
Option 3 ID : **4410095989904**
Option 4 ID : **4410095989902**

Q.10 **Identify the error in the sentence and select the correct option.**

In its final judgment, the International Tribunal proclaimed the state guilty of violating multiple conventions on the treatment of displaced civilians.

Ans
✘ 1. In its final judgment, the International Tribunal announced the state guilty of violating numerous conventions on the treatment of displaced civilians.
✘ 2. In its final judgment, the International Tribunal proclaimed the state guilty for violating multiple conventions on the treatment of displaced civilians.
✘ 3. In its final judgment, the International Tribunal pronounced the state guilty for violating several conventions on the treatment of displaced civilians.
✔ 4. In its final judgment, the International Tribunal adjudged the state guilty of violating multiple conventions on the treatment of displaced civilians.

Question ID : **4410091403883**
Option 1 ID : **4410095544779**
Option 2 ID : **4410095544781**
Option 3 ID : **4410095544778**
Option 4 ID : **4410095544780**

Q.11 Fill in the blanks by choosing the option that best completes the sentence.

During the unexpected commotion in the barn, he impulsively hurled ___ stone at the cow, while his sister, in an equally startled reaction, flung ___ stick toward the pig, causing the animals to scatter in confusion.

Ans
✗ 1. a , an
✗ 2. an , an
✓ 3. a , a
✗ 4. an , a

Question ID : **4410091528973**
Option 1 ID : **4410096039023**
Option 2 ID : **4410096039026**
Option 3 ID : **4410096039025**
Option 4 ID : **4410096039024**

Q.12 Complete the given sentence by choosing the correct option.

The analyst offered insights _____ new guidelines and delivered a cogent report _____ performance.

Ans
✓ 1. pursuant to; regarding
✗ 2. before; with
✗ 3. amidst; by
✗ 4. beyond; upon

Question ID : **4410091516406**
Option 1 ID : **4410095989033**
Option 2 ID : **4410095989034**
Option 3 ID : **4410095989036**
Option 4 ID : **4410095989035**

Q.13 Select the option that can be used as a one-word substitute for the given group of words/phrase.
The scientist's discovery was dismissed as a statement or idea contrary to accepted opinion.

Ans
✗ 1. axiom
✗ 2. paradox
✓ 3. heresy
✗ 4. hypothesis

Question ID : **4410091502690**
Option 1 ID : **4410095935071**
Option 2 ID : **4410095935068**
Option 3 ID : **4410095935069**
Option 4 ID : **4410095935070**

QuickSarkari

Q.14 Select the option that can be used as a one-word substitute for the underlined group of words.
She avoided speaking in large groups because of her **shyness often made her extremely uncomfortable.**

Ans
✔ 1. diffidence
✘ 2. vanity
✘ 3. fortitude
✘ 4. apathy

Question ID : **4410091516703**
Option 1 ID : **4410095990212**
Option 2 ID : **4410095990210**
Option 3 ID : **4410095990211**
Option 4 ID : **4410095990209**

Q.15 Complete the given sentence by choosing the correct option.
If the witnesses ..... earlier, the court could have reached a verdict sooner.

Ans
✔ 1. had testified
✘ 2. were testifying
✘ 3. testified
✘ 4. have testified

Question ID : **4410091456626**
Option 1 ID : **4410095754823**
Option 2 ID : **4410095754825**
Option 3 ID : **4410095754822**
Option 4 ID : **4410095754824**

Q.16 Out of the four alternatives, choose the one that can be used as a substitute for the bracketed word segment.
The teacher warned the students against showing (fear or hatred of foreigners) behaviour during the exchange programme.

Ans
✘ 1. hostile
✘ 2. prejudiced
✔ 3. xenophobic
✘ 4. intolerant

Question ID : **4410091456821**
Option 1 ID : **4410095755590**
Option 2 ID : **4410095755592**
Option 3 ID : **4410095755593**
Option 4 ID : **4410095755591**

QuickSarkari.com | WhatsApp Channel | Telegram: t.me/quick_sarkari

Q.17 Given below are four jumbled sentences. Select the option that gives their correct logical sequence.

A. This overflowing water becomes powerful enough to wash away their habitats.
B. However, after heavy rains, the soil becomes saturated.
C. When the ground can no longer retain excess rainwater, flooding occurs.
D. Earthworms primarily live in soil, which serves as their natural habitat

Ans
✗ 1. ABCD
✓ 2. DBCA
✗ 3. ACDB
✗ 4. CDAB

Question ID : **441009430675**
Option 1 ID : **4410091682220**
Option 2 ID : **4410091682221**
Option 3 ID : **4410091682219**
Option 4 ID : **4410091682218**

Q.18 Select the correct form of the future tense to fill in the blank and complete the given sentence.
By next summer, the team _____ in the desert for over six months, gathering soil samples and monitoring temperature variations for their climate project.

Ans
✗ 1. will have worked
✗ 2. will be working
✗ 3. will work
✓ 4. will have been working

Question ID : **4410091501783**
Option 1 ID : **4410095931537**
Option 2 ID : **4410095931538**
Option 3 ID : **4410095931536**
Option 4 ID : **4410095931539**

Q.19 In the given question, a statement is divided into different segments. The first is fixed, rearrange the other segments to form a meaningful sentence.

She was well known (Fixed) / for having clandestinely concealed (A) / the ornate heirloom jewellery (B) / beneath the secluded expanse of the backyard soil (C) / throughout the entire neighbourhood and its adjoining vicinity (D)

Ans
✗ 1. She was well known / A–B–C–D
✗ 2. She was well known / A–C–B–D
✗ 3. She was well known / D–B–A–C
✓ 4. She was well known / D–A–B–C

Question ID : **4410091565326**
Option 1 ID : **4410096182796**
Option 2 ID : **4410096182798**
Option 3 ID : **4410096182797**
Option 4 ID : **4410096182795**

QuickSarkari.com | WhatsApp Channel | Telegram: t.me/quick_sarkari

Q.20 The following sentence is given in indirect speech. Choose the correct sentence that expresses the same meaning in direct speech.

Arjun said that he had been waiting for his friend for an hour.

Ans
✔ 1. Arjun said, "I had been waiting for my friend for an hour."
✘ 2. Arjun said, "He had been waiting for his friend for an hour."
✘ 3. Arjun said, "I have been waiting for my friend for an hour."
✘ 4. Arjun said, "He has been waiting for his friend for an hour."

Question ID : **4410091456705**
Option 1 ID : **4410095755131**
Option 2 ID : **4410095755130**
Option 3 ID : **4410095755132**
Option 4 ID : **4410095755133**

Section : **Test of English Language and Comprehension1**

Q.1 In the following question, a statement has been given in brackets. You are required to replace the statement with the correct proverb given in the options.

Despite facing several setbacks while preparing for the civil service examination, Ananya continued studying a little every day. Over time, she cleared the exam successfully, proving that (consistent small efforts can overcome great difficulties).

Ans
✘ 1. where there's a will, there's a way
✘ 2. fortune favours the bold
✔ 3. little strokes fell great oaks
✘ 4. no pain, no gain

Question ID : **4410091457027**
Option 1 ID : **4410095756422**
Option 2 ID : **4410095756421**
Option 3 ID : **4410095756420**
Option 4 ID : **4410095756419**

Q.2 Which of the options best represents the opposite of 'penitent' as used in the following sentence?
The penitent criminal finally admitted his wrongdoing in court.

Ans
✘ 1. contrite
✔ 2. callous
✘ 3. rueful
✘ 4. apologetic

Question ID : **4410091513041**
Option 1 ID : **4410095976194**
Option 2 ID : **4410095976195**
Option 3 ID : **4410095976197**
Option 4 ID : **4410095976196**

QuickSarkari.com | WhatsApp Channel | Telegram: t.me/quick_sarkari

Q.3 Choose the correct antonym for the underlined word from the options.
The board sensed that an imminent financial crisis required immediate strategic intervention and planning.

Ans
✗ 1. Eminent
✗ 2. Looming
✗ 3. Pending
✓ 4. Remote

Question ID : **4410091516807**
Option 1 ID : **4410095990625**
Option 2 ID : **4410095990627**
Option 3 ID : **4410095990628**
Option 4 ID : **4410095990626**

Q.4 Select the misspelt word from the underlined words in the given sentence.
Her autobiography provides an inttimate look into the turbulent years that defined her career as a politician.

Ans
✗ 1. turbulent
✗ 2. autobiography
✓ 3. inttimate
✗ 4. defined

Question ID : **4410091530616**
Option 1 ID : **4410096045549**
Option 2 ID : **4410096045550**
Option 3 ID : **4410096045548**
Option 4 ID : **4410096045547**

Q.5 Select the most appropriate option that can correctly substitute the underlined part of the given sentence.
I don't think that prices will go up but, be the real token, I don't see them going down either.

Ans
✗ 1. by the small token
✓ 2. by the same token
✗ 3. by the large amount
✗ 4. by the little amount

Question ID : **4410091531113**
Option 1 ID : **4410096047512**
Option 2 ID : **4410096047511**
Option 3 ID : **4410096047514**
Option 4 ID : **4410096047513**

QuickSarkari.com | WhatsApp Channel | Telegram: t.me/quick_sarkari

Q.6 **Select the most appropriate antonym of the highlighted word in the following sentence.**
The architect dismissed the initial design as hideous, arguing that its chaotic proportions and jarring colour palette undermined the aesthetic integrity required for such a culturally significant monument.

Ans
- ✔ 1. Alluring
- ✘ 2. Repulsive
- ✘ 3. Grotesque
- ✘ 4. Unsightly

Question ID : **4410091527976**
Option 1 ID : **4410096035103**
Option 2 ID : **4410096035101**
Option 3 ID : **4410096035102**
Option 4 ID : **4410096035104**

Q.7 **Choose the most appropriate option to replace the underlined words in the sentence.**

The middle-aged lady, fond of seeking a better job, left her comfortable work-from-home part-time position, believing she would find a better-paying opportunity, but she soon regretted it, realizing she had given up a sure income for a risky chance at more.

Ans
- ✘ 1. that a watched kettle never boils
- ✘ 2. that empty vessels make the most noise
- ✔ 3. that a bird in the hand is worth two in the bush
- ✘ 4. that fortune favours the bold

Question ID : **4410091512771**
Option 1 ID : **4410095975123**
Option 2 ID : **4410095975125**
Option 3 ID : **4410095975124**
Option 4 ID : **4410095975122**

Q.8 **Recognise the spelling error in the following sentence by choosing the appropriate option.**
Their aggresive argument, basically rooted in misunderstanding, escalated quickly and disrupted the entire team meeting.

Ans
- ✘ 1. escalated
- ✘ 2. argument
- ✔ 3. aggresive
- ✘ 4. disrupted

Question ID : **4410091516760**
Option 1 ID : **4410095990443**
Option 2 ID : **4410095990442**
Option 3 ID : **4410095990441**
Option 4 ID : **4410095990444**

QuickSarkari.com | WhatsApp Channel | Telegram: t.me/quick_sarkari

Q.9 **Substitute the correct proverb for the underlined word segment by choosing from the following options.**

He finally submitted his college application a week after the deadline(,/;) as it's better to do something, even if it's delayed.

Ans
1. practice makes perfect
2. Rome wasn't built in a day
3. honesty is the best policy
4. better late than never

Question ID : **4410091516938**
Option 1 ID : **4410095991144**
Option 2 ID : **4410095991142**
Option 3 ID : **4410095991143**
Option 4 ID : **4410095991141**

Q.10 **Choose the antonym of the underlined word in the following sentence.**
The CEO tried to assuage the investors' fears following the unexpected dip in the company's stock value.

Ans
1. comfort
2. mitigate
3. intensify
4. mollify

Question ID : **4410091502836**
Option 1 ID : **4410095935638**
Option 2 ID : **4410095935636**
Option 3 ID : **4410095935637**
Option 4 ID : **4410095935639**

Quick Sarkari

Comprehension:

Read the passage and answer the questions that follow:
Migration stands as one of the defining phenomena of the twenty-first century, shaping not only economies and demographics but also the moral and cultural fabric of societies. With more than 280 million individuals living outside their countries of origin, migration today represents both an act of necessity and a pursuit of aspiration. People migrate for myriad reasons—economic opportunity, education, political refuge, or environmental displacement. Yet beyond these practical motives lies a deeper human story: the constant negotiation of identity in an increasingly interconnected world.
In host societies, migrants often encounter a dual reality. On one hand, they are celebrated as symbols of diversity and globalization; on the other, they face structural exclusion and cultural misunderstanding. Governments frequently emphasize assimilation, expecting migrants to adopt dominant linguistic and cultural norms. Such expectations, while seemingly integrative, can erase difference and suppress the hybrid identities that emerge from cross-cultural encounters. For many migrants and their descendants, belonging becomes an ongoing process rather than a settled fact.
Simultaneously, migration reshapes the very concept of nationhood. Traditional ideas of citizenship—rooted in geography, ethnicity, and singular loyalty—are increasingly challenged by transnational identities that transcend borders. Technology and global communication networks further strengthen these ties, allowing individuals to remain connected to multiple communities across continents. Ultimately, global migration compels societies to rethink what it means to belong. Identity is no longer fixed or singular but dynamic, plural, and continually reconstructed through experience and dialogue. In this sense, migration is not merely about movement across space—it is about transformation across cultures and the redefinition of humanity's collective sense of home.

SubQuestion No : 11

Q.11 What is the most suitable title for the passage?

Ans

✗ 1. The Economic Impacts of Migration

✓ 2. Global Migration and the Search for Identity

✗ 3. The Politics of Refuge in Digital Age

✗ 4. Importance of Borders and Barriers

Question ID : **4410091447931**
Option 1 ID : **4410095720210**
Option 2 ID : **4410095720209**
Option 3 ID : **4410095720211**
Option 4 ID : **4410095720208**

QuickSarkari

Comprehension:

Read the passage and answer the questions that follow:
Migration stands as one of the defining phenomena of the twenty-first century, shaping not only economies and demographics but also the moral and cultural fabric of societies. With more than 280 million individuals living outside their countries of origin, migration today represents both an act of necessity and a pursuit of aspiration. People migrate for myriad reasons—economic opportunity, education, political refuge, or environmental displacement. Yet beyond these practical motives lies a deeper human story: the constant negotiation of identity in an increasingly interconnected world.
In host societies, migrants often encounter a dual reality. On one hand, they are celebrated as symbols of diversity and globalization; on the other, they face structural exclusion and cultural misunderstanding. Governments frequently emphasize assimilation, expecting migrants to adopt dominant linguistic and cultural norms. Such expectations, while seemingly integrative, can erase difference and suppress the hybrid identities that emerge from cross-cultural encounters. For many migrants and their descendants, belonging becomes an ongoing process rather than a settled fact.
Simultaneously, migration reshapes the very concept of nationhood. Traditional ideas of citizenship—rooted in geography, ethnicity, and singular loyalty—are increasingly challenged by transnational identities that transcend borders. Technology and global communication networks further strengthen these ties, allowing individuals to remain connected to multiple communities across continents. Ultimately, global migration compels societies to rethink what it means to belong. Identity is no longer fixed or singular but dynamic, plural, and continually reconstructed through experience and dialogue. In this sense, migration is not merely about movement across space—it is about transformation across cultures and the redefinition of humanity's collective sense of home.

SubQuestion No : 12

Q.12 What is the central theme of the passage?

Ans

✗ 1. Migration as an economic necessity in the modern world

✗ 2. The end of globalization and the beginning of industrialisation

✗ 3. The political control of borders in today's times

✓ 4. The cultural, social, and psychological dimensions of migration

Question ID : **4410091447932**
Option 1 ID : **4410095720212**
Option 2 ID : **4410095720215**
Option 3 ID : **4410095720214**
Option 4 ID : **4410095720213**

QuickSarkari

Comprehension:

Read the passage and answer the questions that follow:
Migration stands as one of the defining phenomena of the twenty-first century, shaping not only economies and demographics but also the moral and cultural fabric of societies. With more than 280 million individuals living outside their countries of origin, migration today represents both an act of necessity and a pursuit of aspiration. People migrate for myriad reasons—economic opportunity, education, political refuge, or environmental displacement. Yet beyond these practical motives lies a deeper human story: the constant negotiation of identity in an increasingly interconnected world.
In host societies, migrants often encounter a dual reality. On one hand, they are celebrated as symbols of diversity and globalization; on the other, they face structural exclusion and cultural misunderstanding. Governments frequently emphasize assimilation, expecting migrants to adopt dominant linguistic and cultural norms. Such expectations, while seemingly integrative, can erase difference and suppress the hybrid identities that emerge from cross-cultural encounters. For many migrants and their descendants, belonging becomes an ongoing process rather than a settled fact.
Simultaneously, migration reshapes the very concept of nationhood. Traditional ideas of citizenship—rooted in geography, ethnicity, and singular loyalty—are increasingly challenged by transnational identities that transcend borders. Technology and global communication networks further strengthen these ties, allowing individuals to remain connected to multiple communities across continents. Ultimately, global migration compels societies to rethink what it means to belong. Identity is no longer fixed or singular but dynamic, plural, and continually reconstructed through experience and dialogue. In this sense, migration is not merely about movement across space—it is about transformation across cultures and the redefinition of humanity's collective sense of home.

SubQuestion No : 13

Q.13 Which fact is explicitly stated in the passage?

Ans

✗ 1. Most migrants return home after ten years.

✗ 2. Technology limits cultural exchange.

✓ 3. Over 280 million people live outside their countries of origin.

✗ 4. Migration has decreased in recent years.

Question ID : **4410091447933**
Option 1 ID : **4410095720218**
Option 2 ID : **4410095720219**
Option 3 ID : **4410095720216**
Option 4 ID : **4410095720217**

QuickSarkari

Comprehension:

Read the passage and answer the questions that follow:
Migration stands as one of the defining phenomena of the twenty-first century, shaping not only economies and demographics but also the moral and cultural fabric of societies. With more than 280 million individuals living outside their countries of origin, migration today represents both an act of necessity and a pursuit of aspiration. People migrate for myriad reasons—economic opportunity, education, political refuge, or environmental displacement. Yet beyond these practical motives lies a deeper human story: the constant negotiation of identity in an increasingly interconnected world.
In host societies, migrants often encounter a dual reality. On one hand, they are celebrated as symbols of diversity and globalization; on the other, they face structural exclusion and cultural misunderstanding. Governments frequently emphasize assimilation, expecting migrants to adopt dominant linguistic and cultural norms. Such expectations, while seemingly integrative, can erase difference and suppress the hybrid identities that emerge from cross-cultural encounters. For many migrants and their descendants, belonging becomes an ongoing process rather than a settled fact.
Simultaneously, migration reshapes the very concept of nationhood. Traditional ideas of citizenship—rooted in geography, ethnicity, and singular loyalty—are increasingly challenged by transnational identities that transcend borders. Technology and global communication networks further strengthen these ties, allowing individuals to remain connected to multiple communities across continents. Ultimately, global migration compels societies to rethink what it means to belong. Identity is no longer fixed or singular but dynamic, plural, and continually reconstructed through experience and dialogue. In this sense, migration is not merely about movement across space—it is about transformation across cultures and the redefinition of humanity's collective sense of home.

SubQuestion No : 14

Q.14 The tone of the passage can best be described as:

Ans

✗ 1. optimistic and celebratory

✓ 2. analytical and empathetic

✗ 3. detached and indifferent

✗ 4. ironic and dismissive

Question ID : **4410091447934**
Option 1 ID : **4410095720223**
Option 2 ID : **4410095720220**
Option 3 ID : **4410095720222**
Option 4 ID : **4410095720221**

QuickSarkari.com | WhatsApp Channel | Telegram: t.me/quick_sarkari

Comprehension:

Read the passage and answer the questions that follow:
Migration stands as one of the defining phenomena of the twenty-first century, shaping not only economies and demographics but also the moral and cultural fabric of societies. With more than 280 million individuals living outside their countries of origin, migration today represents both an act of necessity and a pursuit of aspiration. People migrate for myriad reasons—economic opportunity, education, political refuge, or environmental displacement. Yet beyond these practical motives lies a deeper human story: the constant negotiation of identity in an increasingly interconnected world.
In host societies, migrants often encounter a dual reality. On one hand, they are celebrated as symbols of diversity and globalization; on the other, they face structural exclusion and cultural misunderstanding. Governments frequently emphasize assimilation, expecting migrants to adopt dominant linguistic and cultural norms. Such expectations, while seemingly integrative, can erase difference and suppress the hybrid identities that emerge from cross-cultural encounters. For many migrants and their descendants, belonging becomes an ongoing process rather than a settled fact.
Simultaneously, migration reshapes the very concept of nationhood. Traditional ideas of citizenship—rooted in geography, ethnicity, and singular loyalty—are increasingly challenged by transnational identities that transcend borders. Technology and global communication networks further strengthen these ties, allowing individuals to remain connected to multiple communities across continents. Ultimately, global migration compels societies to rethink what it means to belong. Identity is no longer fixed or singular but dynamic, plural, and continually reconstructed through experience and dialogue. In this sense, migration is not merely about movement across space—it is about transformation across cultures and the redefinition of humanity's collective sense of home.

SubQuestion No : 15

Q.15 Which inference can be drawn from the passage?

Ans

✔ 1. Migration challenges and transforms traditional notions of national identity.

✘ 2. Identity remains fixed regardless of movement.

✘ 3. Migrants should abandon their native cultures to integrate.

✘ 4. Global migration will soon decline due to technology.

Question ID : **4410091447935**
Option 1 ID : **4410095720224**
Option 2 ID : **4410095720226**
Option 3 ID : **4410095720225**
Option 4 ID : **4410095720227**

QuickSarkari.com | WhatsApp Channel | Telegram: t.me/quick_sarkari

Comprehension:

Read the passage carefully and answer the questions that are given below.
Inclusive education is an approach that ensures all children, including those with disabilities, learning difficulties, or language barriers, study together in the same classrooms. It promotes equality, acceptance, and mutual respect among learners. The concept may seem simple, yet it is intricate in practice because it demands adjustments in teaching methods, classroom structures, and educational materials to cater to the diverse needs of every student. It also encourages empathy and cooperation, preparing students for life in a diverse society. However, achieving true inclusion remains a global challenge.

Many children with disabilities are still denied education due to inaccessible infrastructure, untrained teachers, or deep-rooted social stigma. Policymakers often overlook disability while designing education systems, resulting in a gap between what is promised and what is delivered. This gap continues to marginalise millions of children, limiting their future opportunities.

Organisations like UNICEF actively promote inclusive education by supporting governments in policy reforms, teacher training, and awareness campaigns. They emphasise the need to align national education systems with the Convention on the Rights of Persons with Disabilities. Inclusive education goes beyond access — it aims to ensure participation, equity, and learning for all. When education becomes truly inclusive, every child is empowered to learn, contribute, and thrive in society.

SubQuestion No : 16

Q.16 Select an appropriate title for this passage from the given options.

Ans

✗ 1. Inclusive Education: Limiting Access for Disabled Children

✗ 2. Inclusive Education: Helping Every Child to Adjust and Survive

✓ 3. Inclusive Education: Empowering Every Child to Learn and Thrive

✗ 4. Inclusive Education: Empowering Every Child to Study Separately

Question ID : **4410091448749**
Option 1 ID : **4410095723450**
Option 2 ID : **4410095723449**
Option 3 ID : **4410095723451**
Option 4 ID : **4410095723448**

QuickSarkari

Comprehension:

Read the passage carefully and answer the questions that are given below.
Inclusive education is an approach that ensures all children, including those with disabilities, learning difficulties, or language barriers, study together in the same classrooms. It promotes equality, acceptance, and mutual respect among learners. The concept may seem simple, yet it is intricate in practice because it demands adjustments in teaching methods, classroom structures, and educational materials to cater to the diverse needs of every student. It also encourages empathy and cooperation, preparing students for life in a diverse society. However, achieving true inclusion remains a global challenge.

Many children with disabilities are still denied education due to inaccessible infrastructure, untrained teachers, or deep-rooted social stigma. Policymakers often overlook disability while designing education systems, resulting in a gap between what is promised and what is delivered. This gap continues to marginalise millions of children, limiting their future opportunities.

Organisations like UNICEF actively promote inclusive education by supporting governments in policy reforms, teacher training, and awareness campaigns. They emphasise the need to align national education systems with the Convention on the Rights of Persons with Disabilities. Inclusive education goes beyond access — it aims to ensure participation, equity, and learning for all. When education becomes truly inclusive, every child is empowered to learn, contribute, and thrive in society.

SubQuestion No : 17

Q.17 What is the main idea of the passage?

Ans

✗ 1. The passage focuses upon ensuring quality education for children while keeping special needs learners in separate setups.

✓ 2. The passage focuses upon promoting equal learning opportunities for all children through inclusive education.

✗ 3. The passage focuses upon enhancing teacher training but ignoring the importance of acceptance and cooperation among learners.

✗ 4. The passage focuses upon emphasising inclusive education only for differently-abled students rather than for every learner.

Question ID : **4410091448750**
Option 1 ID : **4410095723453**
Option 2 ID : **4410095723454**
Option 3 ID : **4410095723455**
Option 4 ID : **4410095723452**

QuickSarkari

Comprehension:

Read the passage carefully and answer the questions that are given below.
Inclusive education is an approach that ensures all children, including those with disabilities, learning difficulties, or language barriers, study together in the same classrooms. It promotes equality, acceptance, and mutual respect among learners. The concept may seem simple, yet it is intricate in practice because it demands adjustments in teaching methods, classroom structures, and educational materials to cater to the diverse needs of every student. It also encourages empathy and cooperation, preparing students for life in a diverse society. However, achieving true inclusion remains a global challenge.

Many children with disabilities are still denied education due to inaccessible infrastructure, untrained teachers, or deep-rooted social stigma. Policymakers often overlook disability while designing education systems, resulting in a gap between what is promised and what is delivered. This gap continues to marginalise millions of children, limiting their future opportunities.

Organisations like UNICEF actively promote inclusive education by supporting governments in policy reforms, teacher training, and awareness campaigns. They emphasise the need to align national education systems with the Convention on the Rights of Persons with Disabilities. Inclusive education goes beyond access — it aims to ensure participation, equity, and learning for all. When education becomes truly inclusive, every child is empowered to learn, contribute, and thrive in society.

SubQuestion No : 18

Q.18 Identify the structure of the passage.

Ans

✗ 1. Cause and Effect

✗ 2. Narrative

✓ 3. Expository

✗ 4. Descriptive

Question ID : **4410091448751**
Option 1 ID : **4410095723459**
Option 2 ID : **4410095723457**
Option 3 ID : **4410095723456**
Option 4 ID : **4410095723458**

QuickSarkari

Comprehension:

Read the passage carefully and answer the questions that are given below.
Inclusive education is an approach that ensures all children, including those with disabilities, learning difficulties, or language barriers, study together in the same classrooms. It promotes equality, acceptance, and mutual respect among learners. The concept may seem simple, yet it is intricate in practice because it demands adjustments in teaching methods, classroom structures, and educational materials to cater to the diverse needs of every student. It also encourages empathy and cooperation, preparing students for life in a diverse society. However, achieving true inclusion remains a global challenge.

Many children with disabilities are still denied education due to inaccessible infrastructure, untrained teachers, or deep-rooted social stigma. Policymakers often overlook disability while designing education systems, resulting in a gap between what is promised and what is delivered. This gap continues to marginalise millions of children, limiting their future opportunities.

Organisations like UNICEF actively promote inclusive education by supporting governments in policy reforms, teacher training, and awareness campaigns. They emphasise the need to align national education systems with the Convention on the Rights of Persons with Disabilities. Inclusive education goes beyond access — it aims to ensure participation, equity, and learning for all. When education becomes truly inclusive, every child is empowered to learn, contribute, and thrive in society.

SubQuestion No : 19

Q.19 Identify the tone of the passage.

Ans

✔ 1. Informative and encouraging

✘ 2. Informative and cautionary

✘ 3. Analytical and argumentative

✘ 4. Persuasive and emotional

Question ID : **4410091448752**
Option 1 ID : **4410095723462**
Option 2 ID : **4410095723463**
Option 3 ID : **4410095723461**
Option 4 ID : **4410095723460**

QuickSarkari

Comprehension:

Read the passage carefully and answer the questions that are given below.
Inclusive education is an approach that ensures all children, including those with disabilities, learning difficulties, or language barriers, study together in the same classrooms. It promotes equality, acceptance, and mutual respect among learners. The concept may seem simple, yet it is intricate in practice because it demands adjustments in teaching methods, classroom structures, and educational materials to cater to the diverse needs of every student. It also encourages empathy and cooperation, preparing students for life in a diverse society. However, achieving true inclusion remains a global challenge.

Many children with disabilities are still denied education due to inaccessible infrastructure, untrained teachers, or deep-rooted social stigma. Policymakers often overlook disability while designing education systems, resulting in a gap between what is promised and what is delivered. This gap continues to marginalise millions of children, limiting their future opportunities.

Organisations like UNICEF actively promote inclusive education by supporting governments in policy reforms, teacher training, and awareness campaigns. They emphasise the need to align national education systems with the Convention on the Rights of Persons with Disabilities. Inclusive education goes beyond access — it aims to ensure participation, equity, and learning for all. When education becomes truly inclusive, every child is empowered to learn, contribute, and thrive in society.

SubQuestion No : 20

Q.20 Select the correct antonym of the given word from the passage.
Simplified

Ans
✔ 1. Intricate
✘ 2. Diverse
✘ 3. Accessible
✘ 4. Equal

Question ID : **4410091448753**
Option 1 ID : **4410095723466**
Option 2 ID : **4410095723465**
Option 3 ID : **4410095723467**
Option 4 ID : **4410095723464**

QuickSarkari

Quick Sarkari

Thank you for studying with QuickSarkari!

Get the latest Sarkari Naukri notifications, admit cards, results, answer keys and free previous-year papers first - follow us on WhatsApp and Telegram.

Visit www.quicksarkari.com

Join our WhatsApp Channel

https://whatsapp.com/channel/0029VaxxbrREquiPoXTWM229

Join our Telegram Channel

https://t.me/quick_sarkari

Share this PDF with your friends preparing for DSSSB exams.