DSSSB PREVIOUS YEAR PAPER WITH ANSWER KEY

DSSSB Naib Tehsildar

28 February 2026 · Shift 2

डीएसएसएसबी नायब तहसीलदार – 28 फरवरी 2026, शिफ्ट 2 का प्रश्न पत्र, उत्तर कुंजी सहित

200	120 min	1 / −0.25	EN + HI
Questions / प्रश्न	Duration / समय	Marks per Q / अंक	Language / भाषा

Sections: General Awareness, General intelligence and Reasoning Ability, Arithmetical and Numerical Ability, Hindi Language and Comprehension, English Language and Comprehension

INSIDE THIS PDF / इस PDF में

Question Paper in English + Hindi with Answer Key (correct option marked in green) + answer table — Page 2–55
प्रश्न पत्र अंग्रेज़ी + हिंदी में, उत्तर कुंजी सहित (सही विकल्प हरे रंग में) + उत्तर तालिका

Official DSSSB Response Sheet with Answer Key (correct option ticked in green) — Page 56–139
आधिकारिक DSSSB रिस्पॉन्स शीट, उत्तर कुंजी सहित (सही विकल्प हरे टिक से)

HOW TO USE THIS PAPER / इस पेपर का उपयोग कैसे करें

1. Attempt the paper first as a timed online mock test (link below).
   पहले नीचे दिए लिंक से इसे टाइमर के साथ ऑनलाइन मॉक टेस्ट के रूप में हल करें।
2. Check your score, section-wise analysis and solutions online.
   ऑनलाइन अपना स्कोर, खंड-वार विश्लेषण और हल देखें।
3. Use this PDF for revision. Correct answers are shown in green.
   दोहराने के लिए इस PDF का उपयोग करें। सही उत्तर हरे रंग में दिए गए हैं।

Attempt this paper as a FREE online mock test
इस पेपर को फ्री ऑनलाइन मॉक टेस्ट के रूप में हल करें – टाइमर, स्कोर और हल के साथ
https://quicksarkari.com/dsssb-naib-tehsildar-28-february-2026-shift-2-mock-test/

All DSSSB Naib Tehsildar papers and mock tests: **quicksarkari.com/dsssb-mock-test/#naib-tehsildar**

Join WhatsApp Channel | Join Telegram Channel

DSSSB Naib Tehsildar – Question Paper (English + Hindi)

DSSSB नायब तहसीलदार – प्रश्न पत्र (अंग्रेज़ी + हिंदी)

Exam held on 28 February 2026, Shift 2 · 200 questions · correct answers marked ✔ in green
परीक्षा तिथि 28 फरवरी 2026, शिफ्ट 2 · 200 प्रश्न · सही उत्तर हरे रंग में ✔ से चिह्नित

> The official paper for this shift was in Hindi. The English version of each question is a translation prepared by QuickSarkari; the language-section questions are shown as asked.
> इस शिफ्ट का आधिकारिक प्रश्न पत्र हिंदी में था। प्रत्येक प्रश्न का अंग्रेज़ी संस्करण QuickSarkari द्वारा तैयार किया गया अनुवाद है; भाषा खंड के प्रश्न मूल रूप में दिए गए हैं।

General Awareness

Q.1 In the Mauryan administration, which of the following titles was given to the head of the spies?
मौर्य प्रशासन में गुप्तचरों के प्रमुख को, निम्नलिखित में से कौन-सी उपाधि दी जाती थी?

(1) Sansthadhyaksha / संस्थाध्यक्ष (Sansthadhyaksha)
(2) Sandhivigrahaka / संधिविग्रहक (Sandhivigrahaka)
(3) Dhamma Mahamatya / धम्म महामात्य (Dhamma Mahamatya)
(4) Mahamatyapasarpa / महामात्यसर्प (Mahamatyapasarpa) ✔

Q.2 In June 2025, which major satellite internet company received a licence from the Indian government to provide satellite internet services in India?
जून 2025 में भारत में सैटेलाइट इंटरनेट सेवाएं प्रदान करने के लिए, किस प्रमुख सैटेलाइट इंटरनेटकंपनी को भारतीय सरकार से लाइसेंस प्राप्त हुआ?

(1) OneWeb / वनवेब (OneWeb)
(2) HughesNet / ह्यूजेसनेट (HughesNet)
(3) Viasat / वियासैट (Viasat)
(4) Starlink / स्टारलिंक (Starlink) ✔

Q.3 Which statutory body was set up in 1956 to regulate, coordinate, and provide financial support to higher education institutions in India?
भारत में उच्च शिक्षा संस्थानों का विनियमन, समन्वय करने और उन्हें वित्तीय सहायता प्रदान करने के लिए 1956 में किस सांविधिक निकाय की स्थापना की गई थी?

(1) University Grants Commission / विश्वविद्यालय अनुदान आयोग ✔
(2) National Education Commission / राष्ट्रीय शिक्षा आयोग
(3) Indian Council of Social Science Research / भारतीय सामाजिक विज्ञान अनुसंधान परिषद
(4) Council of Scientific and Industrial Research / वैज्ञानिक तथा औद्योगिक अनुसंधान परिषद

Q.4 Which of the following veteran Indian dancer-actresses passed away on 15 October 2025?
निम्नलिखित में से किस अनुभवी भारतीय नर्तकी-अभिनेत्री का 15 अक्टूबर 2025 को निधन हो गया?

(1) Smriti Biswas / स्मृति बिस्वास
(2) Sulochana Latkar / सुलोचना लाटकर
(3) Madhumati / मधुमति ✔
(4) Yamini Krishnamurthy / यामिनी कृष्णमूर्ति

Q.5 Who wrote the book 'I Am a Soldier's Wife', released in 2025?

2025 में विमोचित पुस्तक 'आई एम ए सोल्जर्स वाइफ (I Am a Soldier's Wife)' किसने लिखी?

(1) Geetika Lidder / गीतिका लिड्डर ✔

(2) Naina Lal Kidwai / नैना लाल किदवई

(3) Sudha Murty / सुधा मूर्ति

(4) Rukmini Rao / रुक्मिणी राव

Q.6 Who got the Buland Darwaza built at Fatehpur Sikri?

फतेहपुर सीकरी में बुलंद दरवाजा का निर्माण किसने करवाया था?

(1) Aurangzeb / औरंगजेब

(2) Akbar / अकबर ✔

(3) Jahangir / जहाँगीर

(4) Shah Jahan / शाहजहाँ

Q.7 Which of the following is NOT an objective of the Aspire (Scheme for promotion of Innovation, Entrepreneurship and Agro- Industry) scheme?

निम्नलिखित में से कौन-सा, एस्पायर (नवाचार, उद्यमिता और कृषि-उद्योग को बढ़ावा देने की योजना) योजना का उद्देश्य नहीं है?

(1) Create new jobs, reduce unemployment and Promote entrepreneurship culture in India / नए रोजगार सृजित करना, बेरोजगारी कम करना और भारत में उद्यमिता संस्कृति को बढ़ावा देना

(2) Facilitate innovative business solution for un-met social needs / अपूर्ण सामाजिक आवश्यकताओं के लिए नवोन्मेषी व्यावसायिक समाधान को सुगम बनाना

(3) Guarantee universal and security-free credit access to all graduates in India / भारत के सभी स्नातकों के लिए सार्वभौमिक और प्रतिभूति-मुक्त ऋण उपलब्धता की गारंटी देना ✔

(4) Promote innovation to further strengthen the competitiveness of MSME sector / MSME क्षेत्र की प्रतिस्पर्धात्मकता को और सुदृढ़ करने के लिए नवाचार को बढ़ावा देना

Q.8 As per Article 279A of the Indian Constitution, the GST Council, which will be a joint forum of the Centre and the States, is chaired by the _____.

भारतीय संविधान के अनुच्छेद 279A के अनुसार, GST परिषद, जो केंद्र और राज्यों का एक संयुक्त मंच होगी, की अध्यक्षता _____ द्वारा की जाती है।

(1) Prime Minister / प्रधानमंत्री

(2) RBI governor / RBI गवर्नर

(3) Union Finance Minister / केंद्रीय वित्त मंत्री ✔

(4) NITI Aayog CEO / नीति आयोग के CEO

Q.9 Which Act first introduced a bicameral legislature at the Centre?

किस अधिनियम ने सर्वप्रथम केंद्र में द्विसदनीय विधायिका की शुरुआत की?

(1) Indian Councils Act, 1892 / भारतीय परिषद अधिनियम, 1892

(2) Indian Councils Act, 1909 / भारतीय परिषद अधिनियम, 1909

(3) Government of India Act, 1919 / भारत सरकार अधिनियम, 1919 ✔

(4) Government of India Act, 1935 / भारत सरकार अधिनियम, 1935

Q.10 At what altitude was DRDO's Military Combat Parachute System tested on 15 October 2025?
15 अक्टूबर, 2025 को DRDO की सैन्य लड़ाकू पैराशूट प्रणाली का परीक्षण किस ऊंचाई पर किया गया था?

(1) 20,000 feet / 20,000 फीट
(2) 25,000 feet / 25,000 फीट
(3) 40,000 feet / 40,000 फीट
(4) 32,000 feet / 32,000 फीट ✔

Q.11 Which major defence-space doctrine was released in September 2025?
सितंबर 2025 में कौन-सा प्रमुख डिफेंस-स्पेस डॉक्ट्रिन (defence-space doctrine) जारी किया गया था?

(1) National Satellite Doctrine / नेशनल सैटेलाइट डॉक्ट्रिन (National Satellite Doctrine)
(2) Joint Military Space Doctrine / जॉइंट मिलिट्री स्पेस डॉक्ट्रिन (Joint Military Space Doctrine) ✔
(3) Naval Space Doctrine / नेवल स्पेस डॉक्ट्रिन (Naval Space Doctrine)
(4) Space-Cyber Defence Doctrine / स्पेस-साइबर डिफेंस डॉक्ट्रिन (Space-Cyber Defence Doctrine)

Q.12 In September 2025, which operator launched India's first fully indigenous 4G network?
सितंबर 2025 में, भारत का प्रथम संपूर्णतः स्वदेशी 4G नेटवर्क किस ऑपरेटर ने लॉन्च किया?

(1) Vodafone Idea / वोडाफोन आइडिया
(2) BSNL (Bharat Sanchar Nigam Limited) / BSNL (भारत संचार निगम लिमिटेड) ✔
(3) Reliance Jio / रिलायंस जियो
(4) Bharti Airtel / भारती एयरटेल

Q.13 What was the impact of privatisation on employment in state-owned enterprises in India?
भारत में राज्य के स्वामित्व वाले उद्यमों में रोजगार पर निजीकरण का क्या प्रभाव पड़ा?

(1) Job security for employees increased / कर्मचारियों के लिए नौकरी की सुरक्षा में वृद्धि हुई
(2) Jobs were cut due to restructuring and layoffs / पुनर्गठन और छंटनी के कारण नौकरियों में कटौती हुई ✔
(3) Expansion of the public sector was encouraged / सार्वजनिक क्षेत्र के विस्तार को प्रोत्साहित किया गया
(4) Employment opportunities increased significantly / रोजगार के अवसरों में उल्लेखनीय वृद्धि हुई

Q.14 In July 2025, which DRDO missile successfully completed two consecutive flight tests for Phase-1 validation?
जुलाई 2025 में, DRDO की किस मिसाइल ने चरण-1 सत्यापन के लिए लगातार दो परीक्षण उड़ान सफलतापूर्वक पूरी कीं?

(1) Pralay / प्रलय ✔
(2) Agni-Prime / अग्नि-प्राइम
(3) Shaurya / शौर्य
(4) Akash-NG / आकाश-NG

Q.15 Which of the following Portuguese explorers reached Calicut in 1498?
1498 में निम्नलिखित में से कौन-सा पुर्तगाली खोजकर्ता कालीकट पहुंचा था?

(1) Vasco da Gama / वास्को डा गामा (Vasco da Gama) ✔
(2) Bartholomew Diaz / बार्थोलोम्यू डियाज़ (Bartholomew Diaz)
(3) Alfonso de Albuquerque / अफोंसो डी अल्बुकर्क (Alfonso de Albuquerque)
(4) Francis Drake / फ्रांसिस ड्रेक (Francis Drake)

Q.16 In India's 2026 Republic Day honours, Colonel Sofiya Qureshi was named for which gallantry award?
भारत के 2026 गणतंत्र दिवस सम्मानों में कर्नल सोफिया कुरैशी को किस वीरता पुरस्कार के लिएनामित किया गया था?

(1) Shaurya Chakra / शौर्य चक्र (Shaurya Chakra)
(2) **Vishisht Seva Medal / विशिष्ट सेवा मेडल (Vishisht Seva Medal) ✔**
(3) Ashoka Chakra / अशोक चक्र (Ashoka Chakra)
(4) Sena Medal / सेना मेडल (Sena Medal)

Q.17 What was the name of the tri-service exercise led by the Indian Navy jointly with the Indian Army and the Indian Air Force, held in early November 2025?
भारतीय नौसेना के नेतृत्व में भारतीय थल सेना और भारतीय वायु सेना के साथ संयुक्त रूप से नवंबर 2025 की शुरूआत में आयोजित, त्रि-सेवा अभ्यास का नाम क्या था?

(1) Malabar / मालाबार (Malabar)
(2) Tarang Shakti / तरंग शक्ति (Tarang Shakti)
(3) TROPEX / ट्रोपेक्स (TROPEX)
(4) **Trishul / त्रिशूल (Trishul) ✔**

Q.18 Gandhi Jayanti 2025 marks the completion of how many years since the birth of Mahatma Gandhi?
गांधी जयंती 2025, महात्मा गांधी के जन्म के कितने वर्ष पूरे होने का प्रतीक है?

(1) **156 years / 156 वर्ष ✔**
(2) 150 years / 150 वर्ष
(3) 157 years / 157 वर्ष
(4) 155 years / 155 वर्ष

Q.19 Who led the Paika Rebellion of 1817 in Odisha?
ओडिशा में वर्ष 1817 के पाइका विद्रोह का नेतृत्व किसने किया था?

(1) Kunwar Singh / कुंवर सिंह
(2) Rani Lakshmibai / रानी लक्ष्मीबाई
(3) **Bakshi Jagabandhu / बख्शी जगबंधु ✔**
(4) Ram Singh Kuka / राम सिंह कूका

Q.20 International Literacy Day is celebrated on 8 September. What was its theme in 2025?
अंतर्राष्ट्रीय साक्षरता दिवस 8 सितंबर को मनाया जाता है। 2025 में इसका विषय क्या था?

(1) **Promoting Literacy in the Digital Era / डिजिटल युग में साक्षरता को बढ़ावा देना (Promoting Literacy in the Digital Era) ✔**
(2) Literacy for Life / जीवन के लिए साक्षरता (Literacy for Life)
(3) Transforming Learning Spaces / अधिगम स्थलों का रूपांतरण (Transforming Learning Spaces)
(4) Literacy and Sustainable Development / साक्षरता और सतत विकास (Literacy and Sustainable Development)

Q.21 According to the 2011 Census, which Union Territory of India has the highest child sex ratio?
2011 की जनगणना के अनुसार, भारत के किस केंद्र शासित प्रदेश का बाल लिंग अनुपात सबसेअधिक है?

(1) **Andaman and Nicobar Islands / अंडमान और निकोबार द्वीप समूह ✔**
(2) Lakshadweep / लक्षद्वीप
(3) Daman and Diu / दमन और दीव
(4) Chandigarh / चंडीगढ़

Q.22 During the Mauryan period, rock-cut cave architecture had a _____ plan, consisting of a verandah, a hall and cells around the walls of the hall.

मौर्य काल में, चट्टानों को काटकर बनाई गई गुफा वास्तुकला की _____ योजना थी, जिसमें एक बरामदा, हॉल और हॉल की दीवारों के चारों ओर कक्ष होते थे।

(1) Vihara / विहार ✔
(2) Stupa / स्तूप
(3) Chaitya / चैत्य
(4) Stambha / स्तंभ

Q.23 In which state of India is Chilika Lake located?

चिल्का झील भारत के किस राज्य में स्थित है?

(1) Kerala / केरल
(2) Andhra Pradesh / आंध्र प्रदेश
(3) Tamil Nadu / तमिलनाडु
(4) Odisha / ओडिशा ✔

Q.24 Hathi Gumpha (Hathigumpha) is a part of which of the following?

हाथी गुफा (हाथीगुम्फा) निम्नलिखित में से किसका हिस्सा है?

(1) Udayagiri / उदयगिरी ✔
(2) Lalitagiri / ललितागिरी
(3) Ratnagiri / रत्नागिरी
(4) Dhauligiri / धौलीगिरी

Q.25 In India, mangrove forests are mainly found in which region?

भारत में मैंग्रोव वन मुख्यतः किस क्षेत्र में पाए जाते हैं?

(1) Western Ghats / पश्चिमी घाट
(2) Ganga-Brahmaputra Delta / गंगा-ब्रह्मपुत्र डेल्टा ✔
(3) Thar Desert / थार रेगिस्तान
(4) Himalayas / हिमालय

Q.26 A Constitutional Amendment altering Article 54 or Article 55 requires which additional constitutional step?

अनुच्छेद 54 या अनुच्छेद 55 में परिवर्तन करने वाले संविधान संशोधन के लिए किस अतिरिक्त संवैधानिक प्रक्रिया की आवश्यकता होती है?

(1) Consultation with the Inter-State Council before introduction / पुरःस्थापन से पहले अंतर-राज्य परिषद से परामर्श
(2) Approval by the Supreme Court under its advisory jurisdiction / सर्वोच्च न्यायालय द्वारा अपने सलाहकारी क्षेत्राधिकार के अंतर्गत अनुमोदन
(3) Certification by the Election Commission after passage / पारित होने के बाद निर्वाचन आयोग द्वारा प्रमाणन
(4) Ratification by at least one-half of the State Legislatures / कम से कम आधे राज्य विधानमंडलों द्वारा अनुसमर्थन ✔

Q.27 Which of the following is the approximate value of the acceleration due to gravity on the Earth's surface?

निम्नलिखित में से कौन-सा, भू-पृष्ठ पर गुरुत्वीय त्वरण का लगभग मान है?

(1) 9.7 m/s^2

(2) **9.8 m/s^2 ✔**

(3) 7.8 m/s^2

(4) 8.9 m/s^2

Q.28 During which century did Indo-Saracenic architecture gain prominence in colonial India?

औपनिवेशिक भारत में इंडो-सारसेनिक वास्तुकला किस शताब्दी के दौरान प्रमुखता से उभरी?

(1) 20th century / 20वीं शताब्दी

(2) 18th century / 18वीं शताब्दी

(3) **19th century / 19वीं शताब्दी ✔**

(4) 17th century / 17वीं शताब्दी

Q.29 As per Article 143, if it appears to the President that a question of law has arisen, the President may obtain the opinion from the:

अनुच्छेद 143 के अनुसार, यदि राष्ट्रपति को यह प्रतीत होता है कि विधि का कोई प्रश्न उत्पन्न हुआ है, तो राष्ट्रपति निम्नलिखित से राय प्राप्त कर सकता है:

(1) Prime Minister / प्रधानमंत्री

(2) **Supreme Court / सर्वोच्च न्यायालय ✔**

(3) Attorney General / महान्यायवादी

(4) Advocate General / महाधिवक्ता

Q.30 According to the 2011 Census, how many statutory towns are there in India?

2011 की जनगणना के अनुसार भारत में कितने सांविधिक नगर (statutory town) हैं?

(1) 5578

(2) 6754

(3) **4041 ✔**

(4) 7342

Q.31 The Administrative Tribunals were established under which Part of the Indian Constitution?

प्रशासनिक अधिकरणों की स्थापना भारतीय संविधान के किस भाग के अंतर्गत की गई थी?

(1) **Part XIV-A / भाग XIV-A ✔**

(2) Part XV / भाग XV

(3) Part X / भाग X

(4) Part XII / भाग XII

Q.32 Which of the following was a major cause of the early tribal and peasant revolts in India?

निम्नलिखित में से कौन-सा, भारत में प्रारंभिक जनजातीय और किसान विद्रोहों का एक प्रमुख कारणथा?

(1) Industrialisation policies / औद्योगीकरण नीतियाँ

(2) Trade practices / व्यापार प्रथाएँ

(3) **Excessive land revenue demand / अत्यधिक भूमि राजस्व की मांग ✔**

(4) Western education / पश्चिमी शिक्षा

Q.33 As per the information available as of October 2025, who among the following was the Attorney General of India?

अक्टूबर 2025 तक प्राप्त जानकरी के अनुसार, निम्नलिखित में से कौन भारत का अटॉर्नी जनरल था?

(1) K. M. Nataraj / के. एम. नटराज

(2) **R. Venkataramani / आर. वेंकटरमणी ✔**

(3) Vikramjit Banerjee / विक्रमजीत बनर्जी

(4) Tushar Mehta / तुषार मेहता

Q.34 During which months does the Inter-Tropical Convergence Zone (ITCZ) shift northwards over the Ganga plain?

किन महीनों के दौरान अंतःउष्णकटिबंधीय अभिसरण क्षेत्र (ITCZ) गंगा के मैदान के ऊपर उत्तर की ओर खिसक जाता है?

(1) December–January / दिसंबर–जनवरी

(2) **June–July / जून–जुलाई ✔**

(3) September–October / सितंबर–अक्टूबर

(4) April–May / अप्रैल–मई

Q.35 In Tibet, the Brahmaputra river is known as _____.

तिब्बत में ब्रह्मपुत्र नदी को _____ के नाम से जाना जाता है।

(1) Luit / लुइट (Luit)

(2) **Tsangpo / त्संगपो (Tsangpo) ✔**

(3) Jamuna / जमुना (Jamuna)

(4) Dihang / दिहांग (Dihang)

Q.36 Which Article of the Indian Constitution directs the State to promote the welfare of the people by securing and protecting a social order based on justice, social, economic and political?

भारतीय संविधान का कौन-सा अनुच्छेद राज्य को न्याय, सामाजिक, आर्थिक और राजनीतिक आधार पर सामाजिक व्यवस्था को सुरक्षित और संरक्षित करके लोक के कल्याण को बढ़ावा देने का निर्देश देता है?

(1) Article 39 / अनुच्छेद 39

(2) Article 37 / अनुच्छेद 37

(3) Article 36 / अनुच्छेद 36

(4) **Article 38 / अनुच्छेद 38 ✔**

Q.37 The alternative form of gene is known as _____.

जीन के वैकल्पिक रूप को _____ के रूप में जाना जाता है।

(1) central dogma / केंद्रीय सिद्धांत (central dogma)

(2) chromosome / गुणसूत्र

(3) nucleotide / न्यूक्लियोटाइड

(4) **alleles / युग्मविकल्पी (alleles) ✔**

Q.38 The fluid mosaic model was proposed by _____.

तरल मोज़ेक मॉडल का प्रस्ताव _____ द्वारा दिया गया था।

(1) **Singer and Nicolson / सिंगर और निकोलसन (Singer and Nicolson) ✔**

(2) Robertson / रॉबर्टसन (Robertson)

(3) Schleiden and Schwann / श्लेडेन और श्वान (Schleiden and Schwann)

(4) Danielli and Davson / डेनिएली और डेवसन (Danielli and Davson)

QuickSarkari.com | WhatsApp Channel | Telegram: t.me/quick_sarkari

Q.39 As per the Indian Constitution, the provisions of the Directive Principles of State Policy are ____.
भारतीय संविधान के अनुसार, राज्य के नीति निदेशक तत्वों के उपबंध ____ हैं।

(1) Enforceable by the Parliament / संसद द्वारा प्रवर्तनीय
(2) **Not enforceable by any court / किसी भी न्यायालय द्वारा प्रवर्तनीय नहीं ✔**
(3) Enforceable by courts / न्यायालयों द्वारा प्रवर्तनीय
(4) Enforceable by the President / राष्ट्रपति द्वारा प्रवर्तनीय

Q.40 The term cooperative federalism in the Indian context refers to:
भारतीय संदर्भ में सहकारी संघवाद शब्द का तात्पर्य है:

(1) States assisting the Centre in implementing international treaties / अंतर्राष्ट्रीय संधियों को लागू करने में राज्यों द्वारा केंद्र की सहायता करना
(2) Competition between States for funds / निधियों के लिए राज्यों के बीच प्रतिस्पर्धा
(3) **Centre and States working jointly on national development goals / केंद्र और राज्यों द्वारा राष्ट्रीय विकास लक्ष्यों पर संयुक्त रूप से कार्य करना ✔**
(4) Separation of powers between the Centre and States / केंद्र और राज्यों के बीच शक्तियों का पृथक्करण

General intelligence and Reasoning Ability

Q.41 Refer to the following letter, number, symbol series and answer the question that follows. All numbers are single digit numbers only. Counting to be done from left to right only.
(Left) L = T \ A M 8 V G & 9 % 7 ^ 7 R 3 P 9 W \ S J 4 (Right)
How many such letters are there, each of which is immediately preceded by a number and also immediately followed by a symbol?
निम्नलिखित अक्षर, संख्या, प्रतीक श्रृंखला का संदर्भ लीजिए और उसके बाद दिए गए प्रश्न का उत्तर दीजिए। सभी संख्याएं केवल एकल-अंकीय संख्याएं हैं। गिनती केवल बाएं से दाएं की जानी है।
(बाएं) L = T \ A M 8 V G & 9 % 7 ^ 7 R 3 P 9 W \ S J 4 (दाएं)
ऐसे कितने अक्षर हैं, जिनमें से प्रत्येक के ठीक पहले एक संख्या है और ठीक बाद एक प्रतीक भी है?

(1) More than three / तीन से अधिक
(2) **One / एक ✔**
(3) None / एक भी नहीं
(4) Two / दो

Q.42 In a row of 163 students sitting facing north, Mr. Lal is sitting 55th from the right end. If Mr. Sam is sitting 16th to the left of Mr. Lal, then at which position from the left end of the row is Mr. Sam sitting?
उत्तर दिशा की ओर अभिमुख बैठे 163 विद्यार्थियों की एक पंक्ति में, मिस्टर लाल दाहिने सिरे से 55वें स्थान पर बैठे हैं। यदि मिस्टर सैम, मिस्टर लाल के बाएं ओर 16वें स्थान पर बैठे हैं, तो पंक्ति के बाएं सिरे से मिस्टर सैम कौन-से स्थान पर बैठे हैं?

(1) 99th / 99वें
(2) 95th / 95वें
(3) 97th / 97वें
(4) **93rd / 93वें ✔**

Q.43 Refer to the following number and symbol series and answer the question that follows. Counting to be done from left to right only. All numbers are single-digit numbers.
(Left) ? 5 # > @ 5 + 5 5 9 2 % 7 4 8 $ 7 < $ & > (Right)
How many such symbols are there, each of which is immediately preceded by a number and also immediately followed by a number?

निम्नलिखित संख्या और प्रतीक श्रृंखला का संदर्भ लीजिए और उसके बाद दिए गए प्रश्न का उत्तरदीजिए। गिनती केवल बाएं से दाएं की जानी है। सभी संख्याएं एकल-अंकीय हैं।
(बाएं) ? 5 # > @ 5 + 5 5 9 2 % 7 4 8 $ 7 < $ & > (दाएं)
ऐसे कितने प्रतीक हैं, जिनमें से प्रत्येक के ठीक पहले एक संख्या है और ठीक बाद भी एक संख्या है?

(1) Two / दो
(2) **Three / तीन ✔**
(3) None / एक भी नहीं
(4) One / एक

Q.44 F is the mother of R. R is the sister of X. A is the father of G. G is the son of X. How is F related to G?
F, R की माता है। R, X की बहन है। A, G का पिता है। G, X का पुत्र है। F का G से क्या संबंध है?

(1) Mother / माता
(2) **Mother's mother / माता की माता ✔**
(3) Mother's sister / माता की बहन
(4) Sister / बहन

Q.45 Seven people, D, E, F, G, U, V and W, are sitting in a row facing north. G is sitting second to the right of U. Only two people are sitting between G and D. Only two people are sitting to the left of U. Only three people are sitting between U and E. V is sitting somewhere to the right of W and somewhere to the left of F. How many people are sitting to the right of V?

सात व्यक्ति, D, E, F, G, U, V और W, उत्तर की ओर अभिमुख होकर एक पंक्ति में बैठे हैं। G, U के दाएं से दूसरे स्थान पर बैठा है। G और D के बीच केवल दो व्यक्ति बैठे हैं। U बाएं केवल दो व्यक्ति बैठे हैं। U और E के बीच केवल तीन व्यक्ति बैठे हैं। V, W के दाएं किसी स्थान पर बैठा है और F के बाएं किसी स्थान पर बैठा है।
V के दाएं कितने व्यक्ति बैठे हैं?

(1) Four / चार
(2) One / एक
(3) Two / दो
(4) **Three / तीन ✔**

Q.46 Seven people, D, E, F, G, U, V and W, are sitting around a circular table facing the centre. Only one person sits between U and V when counted from the right of V. Only one person sits between D and V when counted from the right of D. Only one person sits between U and F when counted from the right of U. Only one person sits between F and E when counted from the right of F. Only two people sit between W and E when counted from the left of E.
How many people sit between G and F when counted from the right of G?

सात व्यक्ति, D, E, F, G, U, V और W, एक गोल मेज के परितः केंद्र की ओर मुख करके बैठे हैं। V के दाईं ओर से गिनने पर U और V के बीच केवल एक व्यक्ति बैठा है। D के दाईं ओर से गिनने पर D और V के बीच केवल एक व्यक्ति बैठा है। U के दाईं ओर से गिनने पर U और F के बीच केवल एक व्यक्ति बैठा है।
F के दाईं ओर से गिनने पर F और E के बीच केवल एक व्यक्ति बैठा है। E के बाईं ओर से गिनने पर W और E के बीच केवल दो व्यक्ति बैठे हैं।
G के दाईं ओर से गिनने पर G और F के बीच कितने व्यक्ति बैठे हैं?

(1) One / एक
(2) Four / चार
(3) **Two / दो ✔**
(4) Three / तीन

Q.47 Refer to the given number series and answer the question that follows. All numbers are single-digit numbers only. Counting to be done from left to right only.
(Left) 1 1 7 2 7 1 1 5 2 6 1 9 1 8 5 9 9 5 8 4 7 6 9 (Right)
How many such odd digits are there, each of which is immediately preceded by an even digit and immediately followed by an odd digit?

दी गई संख्या श्रृंखला का संदर्भ लीजिए और नीचे दिए गए प्रश्न का उत्तर दीजिए। सभी संख्याएँ केवल एकल-अंकीय संख्याएँ हैं। गिनती केवल बाएँ से दाएँ की जानी है।
(बाएँ) 1 1 7 2 7 1 1 5 2 6 1 9 1 8 5 9 9 5 8 4 7 6 9 (दाएँ)
ऐसे कितने विषम अंक हैं, जिनमें से प्रत्येक के ठीक पहले एक सम अंक आता है तथा प्रत्येक के ठीकबाद में एक विषम अंक आता है?

(1) None / एक भी नहीं
(2) Two / दो
(3) **Three / तीन ✔**
(4) One / एक

Q.48 Seven boxes D, E, F, G, U, V and W are kept one above the other, but not necessarily in the same order. Only W is kept above F. Only two boxes are kept above D. D is kept immediately above V. G is kept immediately above E. G is not kept third from the bottom.
How many boxes are kept between U and W?

सात बक्से D, E, F, G, U, V और W को एक के ऊपर एक रखा गया है, लेकिन जरूरी नहीं है कि इसी क्रम में रखे गए हों। केवल W को F के ऊपर रखा गया है। D के ऊपर केवल दो बक्से रखे गए हैं। D को V के ठीक ऊपर रखा गया है। G को E के ठीक ऊपर रखा गया है। G को नीचे से तीसरे स्थान पर नहीं रखा गया है।
U और W के बीच कितने बक्से रखे गए हैं?

(1) Four / चार
(2) **Three / तीन ✔**
(3) One / एक
(4) Two / दो

QuickSarkari.com | WhatsApp Channel | Telegram: t.me/quick_sarkari

Q.49 Refer to the following letter series and answer the given question. Counting to be done from left to right only.
(Left) P E Q E V K C N U X U B K R I T Z W J (Right)
How many such consonants are there, each of which is immediately preceded by a consonant and immediately followed by a vowel?
निम्नलिखित अक्षर श्रृंखला का संदर्भ लें और दिए गए प्रश्न का उत्तर दें। गिनती केवल बाएं से दाएं कीजानी है।
(बाएं) P E Q E V K C N U X U B K R I T Z W J (दाएं)
ऐसे कितने व्यंजन हैं, जिनमें से प्रत्येक के ठीक पहले एक व्यंजन और ठीक बाद में एक स्वर है?

(1) Four / चार
(2) Two / दो ✔
(3) One / एक
(4) Three / तीन

Q.50 Refer to the following letter series and answer the question that follows. Counting to be done from left to right only.
(Left) S P K I J E C I O P U N U B H J R T F C E S (Right)
How many such consonants are there, each of which is immediately preceded by a vowel and also immediately followed by a vowel?
निम्नलिखित अक्षर श्रृंखला का संदर्भ लीजिए और उसके बाद दिए गए प्रश्न का उत्तर दीजिए। गिनतीकेवल बाएं से दाएं की जानी है।
(बाएं) S P K I J E C I O P U N U B H J R T F C E S (दाएं)
ऐसे कितने व्यंजन हैं, जिनमें से प्रत्येक के ठीक पहले एक स्वर है और ठीक बाद भी एक स्वर है?

(1) None / एक भी नहीं
(2) More than two / दो से अधिक ✔
(3) One / एक
(4) Two / दो

Q.51 As per a certain logic based on the English alphabetical order, KFJL is related to RMQS. Similarly, IDHJ is related to PKOQ. Following the same logic, GBFH is related to which of the following?
अंग्रेजी वर्णमाला क्रम के आधार पर एक निश्चित तर्क के अनुसार, KFJL का संबंध RMQS से है। इसी प्रकार, IDHJ का संबंध PKOQ से है। समान तर्क का अनुसरण करते हुए GBFH का संबंध निम्नलिखितमें से किससे है?

(1) INOM
(2) NIOM
(3) INMO
(4) NIMO ✔

Q.52 Refer to the following letter series and answer the question that follows. Counting to be done from left to right only.
(Left) K B R M A E S Q C X Z H W P I D F O Y G U (Right)
How many such consonants are there, each of which is immediately preceded by a vowel and also immediately followed by a vowel?
निम्नलिखित अक्षर श्रृंखला का संदर्भ लीजिए और उसके बाद दिए गए प्रश्न का उत्तर दीजिए। गिनतीकेवल बाएं से दाएं की जानी है।
(बाएं) K B R M A E S Q C X Z H W P I D F O Y G U (दाएं)
ऐसे कितने व्यंजन हैं, जिनमें से प्रत्येक के ठीक पहले एक स्वर है और ठीक बाद भी एक स्वर है?

(1) Three / तीन
(2) None / एक भी नहीं ✔
(3) Two / दो
(4) One / एक

Q.53 F is the mother of R. R is the sister of X. A is the father of G. G is the husband of X. How is G related to F?
F, R की माता है। R, X की बहन है। A, G का पिता है। G, X का पति है। G का F से क्या संबंध है?

(1) Daughter's husband / पुत्री का पति ✔
(2) Brother / भाई
(3) Daughter's son / पुत्री का पुत्र
(4) Father / पिता

Q.54 In a certain code language, 'BOAR' is coded as '2764' and 'ROAD' is coded as '2749'. What is the code for 'D' in the given code language?
एक निश्चित कूट भाषा में, 'BOAR' को '2764' के रूप में कूटबद्ध किया जाता है और 'ROAD' को '2749' के रूप में कूटबद्ध किया जाता है। दी गई कूट भाषा में 'D' का कूट क्या होगा?

(1) 4
(2) 2
(3) 7
(4) 9 ✔

Q.55 Refer to the following letter, number and symbol series and answer the question that follows. All numbers are single-digit numbers only. Counting to be done from left to right only.
(Left) B 7 @ F B # X $ & 6 * G T % 8 F C F T = T F X M (Right)
How many such symbols are there, each of which is immediately preceded by a number and immediately followed by a letter?
निम्नलिखित अक्षर, संख्या और प्रतीक श्रृंखला का संदर्भ लीजिए और उसके बाद दिए गए प्रश्न का उत्तर दीजिए। सभी संख्याएं केवल एकल-अंकीय हैं। गिनती केवल बाएं से दाएं की जानी है।
(बाएं) B 7 @ F B # X $ & 6 * G T % 8 F C F T = T F X M (दाएं)
ऐसे कितने प्रतीक हैं, जिनमें से प्रत्येक के ठीक पहले एक संख्या है और ठीक बाद एक अक्षर है?

(1) None / एक भी नहीं
(2) One / एक
(3) Two / दो ✔
(4) Three / तीन

Q.56 In a certain code language, 'EARN' is coded as '5129' and 'NEAL' is coded as '9218'. What is the code for 'L' in the given code language?
किसी निश्चित कूट भाषा में, 'EARN' को '5129' के रूप में कूटबद्ध किया जाता है और 'NEAL' को '9218' के रूप में कूटबद्ध किया जाता है। दी गई कूट भाषा में 'L' का कूट क्या होगा?

(1) 8 ✔
(2) 1
(3) 9
(4) 2

Q.57 In a certain code language, 'ROAD' is coded as '1864' and 'DRAW' is coded as '1748'. What is the code for 'W' in that code language?

किसी निश्चित कूट भाषा में, 'ROAD' को '1864' के रूप में कूटबद्ध किया जाता है और 'DRAW' को '1748' के रूप में कूटबद्ध किया जाता है। उस कूट भाषा में 'W' का कूट क्या होगा?

(1) 4

(2) 8

(3) 1

(4) 7 ✔

Q.58 In a certain way, PX 15 is related to ST -1. Similarly, UY 8 is related to XU -8. Following the same logic, GO 11 is related to which of the following?

एक निश्चित तरीके से PX 15 का संबंध ST -1 से है। उसी प्रकार, UY 8 का संबंध XU -8 से है। उसी तर्कका अनुसरण करते हुए, GO 11 का संबंध निम्नलिखित में से किससे है?

(1) YR -8

(2) KJ -6

(3) JK -5 ✔

(4) TY -4

Q.59 Surabhi is 9th from the top and 28th from the bottom in her class. How many students are there in the class in total?

सुरभि अपनी कक्षा में शीर्ष से 9वें और नीचे से 28वें स्थान पर है। कक्षा में कुल कितने विद्यार्थी हैं?

(1) 24

(2) 36 ✔

(3) 26

(4) 37

Q.60 Six boxes A, B, C, D, E and F are kept one above the other, but not necessarily in the same order. E is kept exactly midway between C and F. C is kept immediately above B. Only two boxes are kept between A and E. E is kept somewhere below A. Which box is kept immediately above F?

छह डिब्बे A, B, C, D, E और F एक के ऊपर एक रखे गए हैं, लेकिन जरूरी नहीं कि इसी क्रम में रखे गए हों। C और F के ठीक बीच में E रखा गया है। C, B के ठीक ऊपर रखा है। A और E के बीच में केवल दो डिब्बे रखे गए हैं। E, A के नीचे किसी स्थान पर रखा गया है। F के ठीक ऊपर कौन-सा डिब्बा रखा गया है?

(1) E

(2) A

(3) B

(4) D ✔

Q.61 Each digit of the number 8921674 is arranged in ascending order from left to right. What will be the sum of the second digit from the left and the second digit from the right in the new number thus formed?

संख्या 8921674 के प्रत्येक अंक को बाएं से दाएं आरोही क्रम में व्यवस्थित किया जाता है। इस प्रकार बनी नई संख्या में बाएं से दूसरे और दाएं से दूसरे अंक का योग कितना होगा?

(1) 9

(2) 8

(3) 11

(4) 10 ✔

Q.62 Based on the English alphabetical order, three of the following four letter-cluster pairs are alike in a certain way and thus form a group. Which letter-cluster pair does NOT belong to that group?
(Note: The odd letter-cluster pair is not based on the number of consonants/vowels or their position in the letter cluster.)
अंग्रेजी वर्णानुक्रम के आधार पर, निम्नलिखित चार अक्षर-समूह युग्मों में से तीन किसी निश्चित तरीके से एकसमान हैं और इस प्रकार एक ग्रुप बनाते हैं। कौन-सा अक्षर-समूह युग्म, उस समूह से संबंधित नहीं है?
(नोटः असंगत अक्षर-समूह युग्म, व्यंजनों/स्वरों की संख्या या उनकी स्थिति पर आधारित नहीं है।)

(1) AN – YT
(2) XQ – UW ✔
(3) WZ – UF
(4) SL – QR

Q.63 Select the set in which the numbers are related in the same way as are the numbers of the following sets.
(Note: Operations should be performed on the whole numbers, without breaking down the numbers into their constituent digits. E.g. 13 – Operations on 13 such as adding/subtracting/multiplying to 13 can be performed. Breaking down 13 into 1 and 3 and then performing mathematical operations on 1 and 3 is not allowed.)
(71, 47, 143)
(83, 22, 130)
उस सेट का चयन कीजिए, जिसमें संख्याएं उसी प्रकार से संबंधित हैं जिस प्रकार निम्नलिखित सेटों की संख्याएं संबंधित हैं।
(नोट: संख्याओं को उनके घटक अंकों में तोड़े बिना संक्रियाएं केवल पूर्ण संख्याओं पर की जानी चाहिए। उदाहरण के लिए, 13 लीजिए - 13 पर संक्रियाएं, जैसे 13 में जोड़ना/घटाना/गुणा करना, की जा सकती हैं। 13 को 1 और 3 में तोड़ना और फिर 1 और 3 पर गणितीय संक्रियाएं करने की अनुमति नहीं है।)
(71, 47, 143)
(83, 22, 130)

(1) (36, 23, 112) ✔
(2) (42, 14, 79)
(3) (54, 41, 165)
(4) (95, 31, 151)

Q.64 Based on the English alphabetical order, three of the following four letter-cluster pairs are alike in a certain way and thus form a group. Which of the following letter-cluster pairs does NOT belong to that group?
(Note: The odd letter-cluster pair is not based on the number of consonants/vowels or their position in the letter cluster.)
अंग्रेजी वर्णानुक्रम पर आधारित, निम्नलिखित चार अक्षर-समूह युग्मों में से तीन किसी निश्चित तरीके से एक समान हैं तथा इस प्रकार एक ग्रुप का निर्माण करते हैं। निम्नलिखित में से कौन-सा अक्षर-समूह युग्म, उस ग्रुप से संबंधित नहीं है?
(नोट: असंगत अक्षर-समूह युग्म, व्यंजनों/स्वरों की संख्या या उनकी स्थिति पर आधारित नहीं है।)

(1) DH-KC
(2) JN-QH ✔
(3) GK-NF
(4) MQ-TL

QuickSarkari.com | WhatsApp Channel | Telegram: t.me/quick_sarkari

Q.65 Select the set in which the numbers are related in the same way as are the numbers of the following sets.
(Note: Operations should be performed on the whole numbers, without breaking down the numbers into their constituent digits.
E.g. 13 – Operations on 13 such as adding/subtracting/multiplying to 13 can be performed. Breaking down 13 into 1 and 3 and then performing mathematical operations on 1 and 3 is not allowed.)
(9, 162, 9)
(7, 98, 7)
उस समुच्चय का चयन कीजिए जिसमें संख्याएँ उसी प्रकार से संबंधित हैं जिस प्रकार निम्नलिखित समुच्चयों की संख्याएँ संबंधित हैं।
(नोट: संख्याओं को उनके घटक अंकों में तोड़े बिना, संक्रियाएँ पूर्ण संख्याओं पर की जानी चाहिए।
उदाहरण के लिए 13 को लीजिए, 13 पर संक्रियाएँ जैसे कि 13 में जोड़ना/घटाना/गुणा करना आदि की जा सकती हैं। 13 को 1 और 3 में तोड़ना तथा फिर 1 और 3 पर गणितीय संक्रियाएँ करने की अनुमति नहीं है।)
(9, 162, 9)
(7, 98, 7)

(1) (8, 140, 10)
(2) (6, 72, 4)
(3) (15, 50, 5)
(4) (10, 200, 10) ✔

Q.66 What should come in place of the question mark (?) in the given series?
85 94 105 118 133 ?
दी गई श्रृंखला में प्रश्न-चिह्न (?) के स्थान पर क्या आना चाहिए?
85 94 105 118 133 ?

(1) 149
(2) 152
(3) 151
(4) 150 ✔

Q.67 Two sets of numbers are given below. In each set of numbers, certain mathematical operation(s) on the first number result(s) in the second number. Similarly, certain mathematical operation(s) on the second number result(s) in the third number and so on. Which of the given options follows the same set of operations as in the given sets?
(Note: Two/three-digit numbers cannot be broken into individual digits for operations.
E.g. if 37 is followed by 10, the operation cannot be 3 + 7, because a two-digit number cannot be broken into individual digits.)
10 - 12 - 14 - 17 ; 3 - 5 - 7 - 10
नीचे संख्याओं के दो समूह दिए गए हैं। प्रत्येक समूह में, पहली संख्या पर कुछ गणितीय संक्रियाएँ करने से दूसरी संख्या प्राप्त होती है। इसी प्रकार, दूसरी संख्या पर कुछ गणितीय संक्रियाएँ करने से तीसरी संख्या प्राप्त होती है, और इसी प्रकार आगे भी संख्याएं प्राप्त होती हैं। दिए गए विकल्पों में से कौन-सा विकल्प दिए गए समूहों के समान संक्रियाओं का अनुसरण करता है?
(नोट: दो/तीन अंकों की संख्या को संक्रियाओं के लिए अलग-अलग अंकों में नहीं तोड़ा जा सकता है।
उदाहरण के लिए, यदि 37 के बाद 10 आता है, तो संक्रिया 3 + 7 नहीं हो सकती क्योंकि दो अंकों की संख्या को अलग-अलग अंकों में नहीं तोड़ा जा सकता है।)
10 - 12 - 14 - 17 ; 3 - 5 - 7 - 10

(1) 13 - 15 - 17 - 20 ✔
(2) 20 - 30 - 50 - 100
(3) 9 - 11 - 13 - 15
(4) 1 - 3 - 5 - 10

QuickSarkari.com | WhatsApp Channel | Telegram: t.me/quick_sarkari

Q.68 What should come in place of ? in the given series?
27 31 42 60 85 ?
दी गई श्रृंखला में ? के स्थान पर क्या आना चाहिए?
27 31 42 60 85 ?

(1) 118
(2) 119
(3) 116
(4) **117** ✔

Q.69 Each digit of the number 9236571 is arranged in ascending order from left to right. What will be the sum of the second digit from the left and the second digit from the right in the new number thus formed?
संख्या 9236571 के प्रत्येक अंक को बाएं से दाएं आरोही क्रम में व्यवस्थित किया जाता है। इस प्रकार बनी नई संख्या में बाएं से दूसरे और दाएं से दूसरे अंक का योग कितना होगा?

(1) 6
(2) **9** ✔
(3) 8
(4) 7

Q.70 Based on the English alphabetical order, three of the following four letter-cluster pairs are alike in a certain way and thus form a group. Which of the following letter-cluster pairs does NOT belong to that group?
(Note: The odd letter-cluster pair is not based on the number of consonants/vowels or their position in the letter cluster.)
अंग्रेजी वर्णानुक्रम पर आधारित, निम्नलिखित चार अक्षर-समूह युग्मों में से तीन किसी निश्चित तरीके से एक समान हैं तथा इस प्रकार एक ग्रुप का निर्माण करते हैं। निम्नलिखित में से कौन-सा अक्षर-समूह युग्म, उस ग्रुप से संबंधित नहीं है?
(नोट: असंगत अक्षर-समूह युग्म, व्यंजनों/स्वरों की संख्या या उनकी स्थिति पर आधारित नहीं है।)

(1) PN-RO
(2) **WI-YB** ✔
(3) RP-TQ
(4) YW-AX

Q.71 If 'A' stands for '÷', 'B' stands for '×', 'C' stands for '+' and 'D' stands for '-', then what will come in place of the question mark (?) in the following equation?
17 B 8 A 4 D 36 C 43 = ?
यदि 'A' का अर्थ '÷' है, 'B' का अर्थ '×' है, 'C' का अर्थ '+' है और 'D' का अर्थ '-' है, तो निम्नलिखित समीकरण में प्रश्न-चिह्न (?) के स्थान पर क्या आएगा?
17 B 8 A 4 D 36 C 43 = ?

(1) 42
(2) **41** ✔
(3) 43
(4) 39

Q.72 Two sets of numbers are given below. In each set of numbers, certain mathematical operation(s) on the first number result(s) in the second number. Similarly, certain mathematical operation(s) on the second number result(s) in the third number and so on. Which of the given options follows the same set of operations as in the given sets?
(Note: Two/three-digit numbers cannot be broken into individual digits for operations, e.g. if 37 is followed by 10, the operation cannot be 3 + 7, because a two-digit number cannot be broken into individual digits)
12 - 14 - 16 - 20 ; 2 - 4 - 6 - 10

नीचे संख्याओं के दो समुच्चय दिए गए हैं। संख्याओं के प्रत्येक समुच्चय में, पहली संख्या पर निश्चित गणितीय संक्रियाओं के परिणामस्वरूप दूसरी संख्या प्राप्त होती है। इसी प्रकार, दूसरी संख्या पर निश्चित गणितीय संक्रियाओं के परिणामस्वरूप तीसरी संख्या प्राप्त होती है और इसी प्रकार आगे भी संख्याएँ प्राप्त होती हैं। दिए गए विकल्पों में से कौन-सा विकल्प दिए गए समुच्चयों में अनुसरण की गई संक्रियाओं के समान संक्रियाओं का अनुसरण करता है?
(नोट: दो/तीन अंकों वाली संख्या को संक्रियाओं के लिए अलग-अलग अंकों में नहीं तोड़ा जा सकता है, उदाहरण के लिए, यदि 37 के बाद 10 है, तो संक्रिया 3 + 7 नहीं हो सकती है, क्योंकि दो अंकों वाली संख्या को अलग-अलग अंकों में नहीं तोड़ा जा सकता है)
12 - 14 - 16 - 20 ; 2 - 4 - 6 - 10

(1) 92 - 94 - 96 - 100 ✔
(2) 24 - 28 - 30 - 34
(3) 22 - 24 - 26 - 32
(4) 34 - 36 - 40 - 44

Q.73 In a certain way, based on the English alphabetical order, MUGF is related to LSDB. Similarly, QOTI is related to PMQE. Following the same logic, BENK is related to which of the following?

किसी निश्चित तरीके से, अंग्रेजी वर्णमाला क्रम पर आधारित MUGF का संबंध LSDB से है। इसी प्रकार, QOTI का संबंध PMQE से है। इसी तर्क का अनुसरण करते हुए, BENK का संबंध निम्नलिखित में सेकिससे है?

(1) ZCLI
(2) YBKH
(3) ACKG ✔
(4) ADMJ

Q.74 If 'A' stands for '÷', 'B' stands for 'x', 'C' stands for '+' and 'D' stands for '-', then what will come in place of the question mark (?) in the following equation?
3 B 2 D 18 A 6 C 13 = ? D 4

यदि 'A' का अर्थ '÷' है, 'B' का अर्थ 'x' है, 'C' का अर्थ '+' है और 'D' का अर्थ '-' है, तो निम्नलिखित समीकरण में प्रश्न-चिह्न (?) के स्थान पर क्या आएगा?
3 B 2 D 18 A 6 C 13 = ? D 4

(1) 20 ✔
(2) 17
(3) 25
(4) 23

Q.75 If 2 is added to each even digit and 1 is subtracted from each odd digit of the number 92157346, then find the sum of the second digit from the left and the third digit from the right in the new number thus formed.

यदि संख्या 92157346 के प्रत्येक सम अंक में 2 जोड़ दिया जाए तथा प्रत्येक विषम अंक से 1 घटादिया जाए, तो इस प्रकार बनी नई संख्या में बाएं से दूसरे अंक और दाएं से तीसरे अंक का योगफल ज्ञात कीजिए।

(1) 12
(2) 10
(3) 8
(4) 6 ✔

Q.76 What should come in place of ? in the given series?
7 13 31 85 247 ?

दी गई श्रृंखला में ? के स्थान पर क्या आना चाहिए?
7 13 31 85 247 ?

(1) 733 ✔
(2) 735
(3) 734
(4) 732

Q.77 Which of the following letter-number clusters will replace the question mark (?) in the given series to make it logically complete?
QHW 22 SJY 21 ULA 20 WNC 19 ?

दी गई श्रृंखला में प्रश्न-चिह्न (?) को निम्नलिखित में से किस अक्षर-संख्या समूह द्वारा प्रतिस्थापित करने पर श्रृंखला तार्किक रूप से पूर्ण हो जाएगी?
QHW 22 SJY 21 ULA 20 WNC 19 ?

(1) ZQE 21
(2) ZPE 20
(3) YPE 18 ✔
(4) YQF 19

QuickSarkari.com | WhatsApp Channel | Telegram: t.me/quick_sarkari

Q.78 If a water body is placed along X-Y as shown in the figure, which of the given options will be the water image of the figure?



यदि आकृति में दिखाए अनुसार, X-Y के अनुदिश जल स्रोत रखा जाए, तो दिए गए विकल्पों में से कौन- सा विकल्प आकृति का जल प्रतिबिंब होगा?

(1) 

(2) 

(3) 

(4) 

✔

Quick Sarkari

Q.79 Select the set in which the numbers are related in the same way as are the numbers of the following sets.
(Note: Operations should be performed on the whole numbers, without breaking down the numbers into their constituent digits.
E.g. 13 – Operations on 13 such as adding/subtracting/multiplying to 13 can be performed. Breaking down 13 into 1 and 3 and then performing mathematical operations on 1 and 3 is not allowed.)
(57,13,22)
(16,10,3)
उस समुच्चय का चयन कीजिए जिसमें संख्याएँ उसी प्रकार संबंधित हैं जिस प्रकार निम्नलिखित समुच्चयों की संख्याएँ संबंधित हैं।
(नोट: संख्याओं को उसके घटक अंकों में तोड़े बिना, संक्रियाएँ पूर्ण संख्याओं पर की जानी चाहिए।
उदाहरण के लिए 13 को लीजिए - 13 पर संक्रियाएँ जैसे कि 13 में जोड़ना / घटाना / गुणा करना आदि 13 पर की जा सकती हैं। 13 को 1 व 3 में तोड़ना और फिर 1 व 3 पर गणितीय संक्रियाएँ करने की अनुमति नहीं है।)
(57,13,22)
(16,10,3)

(1) (9,17,21)
(2) (28,2,4)
(3) (24,12,6) ✔
(4) (5,15,21)

Q.80 Which of the following letter-number clusters will replace the question mark (?) in the given series to make it logically complete?
EXX 66 JUT 53 ORP 40 ? YLH 14
निम्नलिखित में से कौन-सा अक्षर-संख्या समूह दी गई श्रृंखला में प्रश्न-चिह्न (?) को प्रतिस्थापित करके इसे तार्किक रूप से पूर्ण बना देगा?
EXX 66 JUT 53 ORP 40 ? YLH 14

(1) BHT 21
(2) HGT 29
(3) TOL 27 ✔
(4) OLP 23

Arithmetical and Numerical Ability

Q.81 If ₹48,000 is deposited for 2 years at an interest rate of 5% per annum, what will be the difference between the compound interest (when interest is compounded annually) and the simple interest?
यदि ₹48,000 को 5% वार्षिक ब्याज दर पर 2 वर्षों के लिए जमा किया जाता है, तो चक्रवृद्धिब्याज (जब ब्याज वार्षिक रूप से संयोजित होता है) और साधारण ब्याज के बीच का अंतर कितना होगा?

(1) ₹128
(2) ₹120 ✔
(3) ₹119
(4) ₹123

Q.82 Ketan has two grandsons, Tushar and Salil. Tushar, aged 11 years, receives some money from Ketan's property and Salil, aged 12 years, gets the remaining amount. But Tushar and Salil will get the money only when they turn 24 years old. Until then, the money remained deposited in a bank that earned compound interest at 8% per annum, the interest being compounded annually. When both turn 24, they receive equal amounts. If Ketan had ₹23,400 in total, how much money (in ₹) did Ketan initially give to Salil?

केतन के दो पौत्र तुषार और सलिल हैं। 11 वर्षीय तुषार को केतन की संपत्ति से कुछ पैसे प्राप्त होते हैं तथा 12 वर्षीय सलिल को शेष राशि मिलती है। लेकिन तुषार और सलिल को पैसे तब मिलेंगे, जब वे 24 वर्ष के हो जाएंगे। तब तक पैसा एक बैंक में जमा रहा था जिस पर 8% का वार्षिक चक्रवृद्धि ब्याज प्राप्त हुआ, जहां ब्याज वार्षिक रूप से संयोजित की गई थी। जब दोनों 24 वर्ष के हो जाते हैं, तो उन्हें समान राशि प्राप्त होती है। यदि केतन के पास कुल ₹23,400 थे, तो प्रारंभ में केतन ने सलिल को कितने रुपए (₹ में) दिए थे?

(1) 12,500

(2) 11,000

(3) 12,150 ✔

(4) 11,250

Q.83 If $(-3)^{8k+2} \times (-3)^7 = (-3)^{17}$, then find the value of k.

यदि $(-3)^{8k+2} \times (-3)^7 = (-3)^{17}$ है, तो k का मान ज्ञात कीजिए।

(1) 2

(2) 7

(3) 1 ✔

(4) 9

Q.84 The H.C.F. and L.C.M. of two numbers are 2 and 656, respectively. If one of the numbers is 82, find the other number.

दो संख्याओं का महत्तम समापवर्तक (H.C.F.) और लघुत्तम समापवर्त्य (L.C.M.) का मान क्रमशः 2 और 656 हैं। यदि उनमें से एक संख्या 82 है, तो दूसरी संख्या ज्ञात कीजिए।

(1) 2

(2) 72

(3) 16 ✔

(4) 111

Q.85 By how much is 30% of 75 greater than 25% of 50?

75 के 30% का मान 50 के 25% से कितना अधिक है?

(1) 12

(2) 5

(3) 10 ✔

(4) 7

Q.86 Find the value of m for which it satisfies the following.

$(17/10)^3 \times (10/17)^2 \times (17/10)^8 = (10/17)^{8m+9}$

m का वह मान ज्ञात कीजिए जिसके लिए यह निम्नांकित को संतुष्ट करता है।

$(17/10)^3 \times (10/17)^2 \times (17/10)^8 = (10/17)^{8m+9}$

(1) −7/4

(2) −3/4

(3) −9/4 ✔

(4) −1/4

Q.87 Find the value of the following expression.

$6^3 + 12^3 + 18^3 + \cdots + 66^3$

निम्न व्यंजक का मान ज्ञात कीजिए।

$6^3 + 12^3 + 18^3 + \cdots + 66^3$

(1) 94896

(2) 903312

(3) 93312

(4) 940896 ✔

Q.88 A chemist has two acid solutions: solution A has 15% acid concentration and solution B has 40% acid concentration. He wants to make a 25% acid solution. In what ratio should solution A and solution B be mixed?

एक रसायनज्ञ के पास अम्ल के दो विलयन हैं: विलयन A में 15% अम्ल सांद्रता है और विलयन B में 40% अम्ल सांद्रता है। वह 25% अम्ल विलयन बनाना चाहता है। विलयन A और विलयन B को किस अनुपात में मिलाना चाहिए?

(1) 1:3

(2) 3:2 ✔

(3) 2:3

(4) 3:1

Q.89 Simplify the following expression.

20 × 3 of 2 + 18 ÷ 6 − 15 of 35 ÷ 5

निम्नलिखित व्यंजक को सरलीकृत कीजिए।

20 × 3 का 2 + 18 ÷ 6 − 15 का 35 ÷ 5

(1) 20

(2) 16

(3) 22

(4) 18 ✔

QuickSarkari.com | WhatsApp Channel | Telegram: t.me/quick_sarkari

Q.90 The pie charts show the distribution of sales of Company A and Company B across four categories.

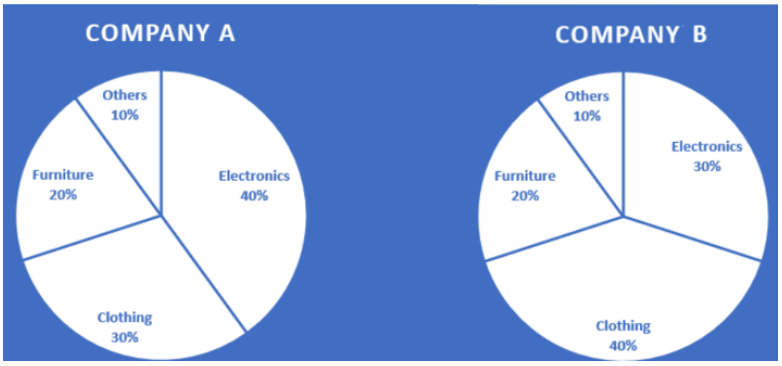

Image reference:
Company A: Electronics 40%, Clothing 30%, Furniture 20%, Others 10% Company B: Electronics 30%, Clothing 40%, Furniture 20%, Others 10% By what percentage are the clothing sales of Company B more than the clothing sales of Company A?

पाई चार्ट में कंपनी A और कंपनी B का चार श्रेणियों में बिक्री बंटन को प्रदर्शित किया गया है।
इमेज संदर्भ:
कंपनी A: इलेक्ट्रॉनिक्स 40% (Electronics 40%), कपड़े 30% (Clothing 30%), फर्नीचर 20% (Furniture 20%), अन्य 10% (others 10%)
कंपनी B: इलेक्ट्रॉनिक्स 30% (Electronics 30%), कपड़े 40% (Clothing 40%), फर्नीचर 20% (Furniture 20%), अन्य 10% (others 10%)
कंपनी B की कपड़ों की बिक्री, कंपनी A की कपड़ों की बिक्री से कितने प्रतिशत अधिक है?

(1) 20%
(2) **10%** ✔
(3) 15%
(4) 5%

Q.91 In what ratio should a shopkeeper mix two varieties of wheat costing ₹54 per kg and ₹108 per kg, so that if he sells the mixture at ₹141 per kg, he makes a profit of 50%?

एक दुकानदार को ₹54 प्रति kg और ₹108 प्रति kg की दो किस्मों के गेहूं को किस अनुपात में मिलाना चाहिए, ताकि यदि वह मिश्रण को ₹141 प्रति kg पर बेचे तो उसे 50% का लाभ हो?

(1) 11:27
(2) 17:25
(3) **7:20** ✔
(4) 9:21

Q.92 Find the simple interest (in ₹) on a borrowed sum of ₹5,000 at 5% per annum for 6 years.

₹5,000 की उधार ली गई राशि पर 5% वार्षिक ब्याज दर से 6 वर्षों के लिए साधारण ब्याज (₹ में) ज्ञात कीजिए।

(1) 1,440
(2) **1,500** ✔
(3) 1,460
(4) 1,540

QuickSarkari.com | WhatsApp Channel | Telegram: t.me/quick_sarkari

Q.93 What is the sum of the squares of the first 20 natural numbers?

प्रथम 20 प्राकृत संख्याओं के वर्गों का योग कितना है?

(1) 2965

(2) 2190

(3) 2500

(4) 2870 ✔

Q.94 Which of the following numbers is divisible by 16?

निम्नलिखित में से कौन-सी संख्या 16 से विभाज्य है?

(1) 210441

(2) 212893

(3) 212672 ✔

(4) 209673

Q.95 The ratio of two numbers is 10 : 3 and their sum is 260. Find the L.C.M. of the numbers.

दो संख्याओं का अनुपात 10 : 3 है और उनका योग 260 है। उन संख्याओं का ल.स.प. ज्ञात कीजिए।

(1) 480

(2) 560

(3) 600 ✔

(4) 660

Q.96 Find the arithmetic mean of the observations 49, 13, 60, 56, 71, 98, 91, 17 and 49.

प्रेक्षणों 49, 13, 60, 56, 71, 98, 91, 17 और 49 का समांतर माध्य ज्ञात कीजिए।

(1) 65

(2) 56 ✔

(3) 55

(4) 61

Q.97 The following graph shows the number of boys and girls enrolled in a school over four years.

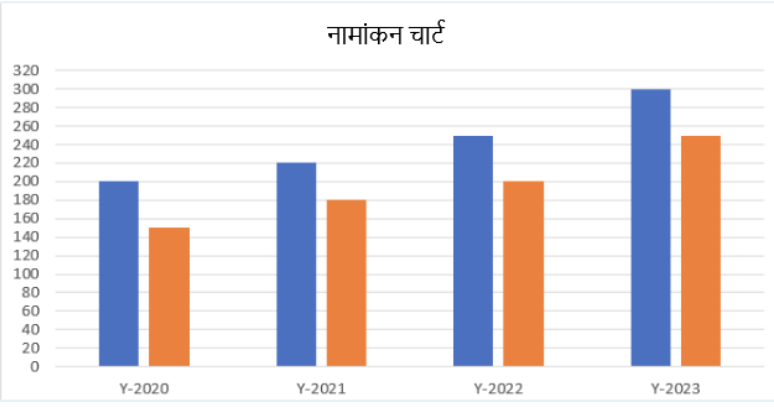

How many students in total enrolled in 2021 and 2022 combined?

निम्नलिखित ग्राफ में चार वर्षों में एक विद्यालय में नामांकित छात्र और छात्राओं की संख्या को प्रदर्शितकिया गया है।
2021 और 2022 में मिलाकर कुल कितने विद्यार्थियों ने नामांकन कराया?

(1) 800

(2) 900

(3) 850 ✔

(4) 750

Q.98 Simplify the following.
(15/2 + 17/6 of 6/2)/(19 − 17/6 ÷ 2/6)
निम्नलिखित को सरल कीजिए।
(15/2 + 17/6 का 6/2)/(19 − 17/6 ÷ 2/6)

(1) 29/31
(2) 40/23
(3) 37/22
(4) 32/21 ✔

Q.99 The monthly incomes of two friends, Salil and Mukund, are in the ratio 6 : 7, respectively, and each of them saves ₹24,000 every month. If the ratio of their monthly expenditures is 2 : 4, find Salil's monthly income (in ₹).
दो मित्रों सलिल और मुकुंद की मासिक आय का अनुपात क्रमशः 6 : 7 है, और दोनों प्रत्येक माह ₹24,000 की बचत करते हैं। यदि उनके मासिक व्यय का अनुपात 2 : 4 है, तो सलिल की मासिक आय (₹ में) ज्ञात कीजिए।

(1) 29,800
(2) 28,800 ✔
(3) 40,320
(4) 27,800

Q.100 A company has three departments A, B and C with 10, 15 and 25 employees, respectively. The average salaries in departments A, B and C are ₹50,000, ₹60,000 and ₹70,000, respectively. If the company gives a 10% salary hike in department A, a 5% salary hike in department B and an 8% salary hike in department C, what will be the new overall average salary of the company?
एक कंपनी में A, B और C तीन विभाग हैं, जिनमें क्रमशः 10, 15 और 25 कर्मचारी हैं। विभाग A, B और C में औसत वेतन क्रमशः ₹50,000, ₹60,000 और ₹70,000 है। यदि कंपनी, विभाग A में 10% वेतन वृद्धिकरती है, विभाग B में 5% वेतन वृद्धिकरती है और विभाग C में 8% वेतन वृद्धिकरती है, तो कंपनी का नया समग्र औसत वेतन कितना होगा?

(1) ₹66,000
(2) ₹64,500
(3) ₹67,700 ✔
(4) ₹65,660

Q.101 A shop is offering a 30% discount on a sweater. If the selling price of the sweater after the discount is ₹840, what was the original marked price of the sweater?
एक दुकान स्वेटर पर 30% की छूट दे रही है। यदि छूट के बाद स्वेटर का विक्रय मूल्य ₹840 है, तो स्वेटरका मूल अंकित मूल्य कितना था?

(1) ₹1,350
(2) ₹1,200 ✔
(3) ₹1,400
(4) ₹1,140

Q.102 Find the outer surface area of a conical vessel having a radius of 8 cm and a slant height of 14 cm. (Use π = 22/7)
8 cm त्रिज्या और 14 cm तिर्यक ऊंचाई वाले एक शंक्वाकार पात्र का बाहरी पृष्ठीय क्षेत्रफल ज्ञात कीजिए। (π = 22/7 का प्रयोग कीजिए)

(1) 364 cm^2
(2) 264 cm^2
(3) 252 cm^2
(4) 352 cm^2 ✔

Q.103 A wall of 6 m × 3 m × 2.5 m is to be built with bricks of size 25 cm × 12.5 cm × 7.5 cm. How many bricks will be required to build this wall (ignoring the mortar space)?

25 cm × 12.5 cm × 7.5 cm आकार की ईंटों से 6 m × 3 m × 2.5 m की एक दीवार बनाई जानी है। इस दीवार को बनाने के लिए कितनी ईंटों की आवश्यकता (मोर्टर जगह की उपेक्षा करते हुए) होगी?

(1) 19,550

(2) 19,200 ✔

(3) 16,200

(4) 18,250

Q.104 The cost price of an article is ₹8,800. The seller wants to earn a 15% profit after giving a 20% discount. What price should he mark on the article?

किसी वस्तु का क्रय मूल्य ₹8,800 है। विक्रेता 20% की छूट देने के बाद 15% लाभ अर्जित करना चाहता है। उसे वस्तु पर कितना अंकित करना चाहिए?

(1) ₹12,500

(2) ₹12,550

(3) ₹12,600

(4) ₹12,650 ✔

Q.105 Divide ₹28,000 into three parts such that 1/2 of the first part, 1/4 of the second part and 1/8 of the third part are equal. Find the first part (in ₹).

₹28,000 को तीन भागों में इस प्रकार विभाजित कीजिए कि पहले भाग का 1/2, दूसरे भाग का 1/4 और तीसरे भाग का 1/8 भाग बराबर हो। पहला भाग (₹ में) ज्ञात कीजिए।

(1) 4200

(2) 4000 ✔

(3) 3800

(4) 4100

Q.106 A man is walking at a speed of 9 km/h. After every kilometre, he takes a rest of 5 minutes. How much time will he take to cover a distance of 18 km?

एक व्यक्ति 9 km/h की चाल से चल रहा है। प्रत्येक किलोमीटर के बाद, वह 5 मिनट का विश्राम करता है। 18 km की दूरी तय करने में, उसे कितना समय लगेगा?

(1) 3 hours 35 minutes / 3 घंटे 35 मिनट

(2) 3 hours 25 minutes / 3 घंटे 25 मिनट ✔

(3) 3 hours 20 minutes / 3 घंटे 20 मिनट

(4) 3 hours 10 minutes / 3 घंटे 10 मिनट

Q.107 The ratio of the salaries of A and B is 4:5. If B's salary is ₹30,000, find A's salary.

A और B के वेतन का अनुपात 4:5 है। यदि B का वेतन ₹30,000 है, तो A का वेतन ज्ञात कीजिए।

(1) ₹25,100

(2) ₹24,100

(3) ₹24,000 ✔

(4) ₹22,000

Q.108 If p : q : r = 19 : 13 : 6 and r : s = 30 : 6, then find p : q : r : s.

यदि p : q : r = 19 : 13 : 6 और r : s = 30 : 6 है, तो p : q : r : s ज्ञात कीजिए।

(1) 96:66:33:9

(2) 93:72:32:12

(3) **95:65:30:6** ✔

(4) 92:68:37:13

Q.109 Find the area of a right-angled triangle with base sides of 8 cm and a hypotenuse of 17 cm.

8 cm आधार भुजा और 17 cm कर्ण वाले एक समकोण त्रिभुज का क्षेत्रफल ज्ञात कीजिए।

(1) 90 cm^2

(2) 68 cm^2

(3) 75 cm^2

(4) **60 cm^2** ✔

Q.110 A, B and C can complete a work in 3, 9 and 18 days, respectively. If all three together do three times the same work, how much time (in days) will they take?

A, B और C एक कार्य को क्रमशः 3, 9 और 18 दिनों में पूरा कर सकते हैं। यदि वे तीनों मिलकर उसीकार्य का तीन गुना करें, तो उन्हें कितना समय (दिनों में) लगेगा?

(1) 12

(2) 7

(3) **6** ✔

(4) 18

Q.111 The volume of a cube is 4913 cm^3. What is the surface area of the cube?

एक घन का आयतन 4913 cm^3 है। घन का पृष्ठीय क्षेत्रफल कितना है?

(1) 1244 cm^2

(2) 1234 cm^2

(3) 1534 cm^2

(4) **1734 cm^2** ✔

Q.112 A retailer buys an electronic item for ₹230. His overhead expenses are ₹20. He sells the electronic item for ₹440 and makes x% profit. The value of x is:

एक खुदरा विक्रेता एक इलेक्ट्रॉनिक वस्तु ₹230 में खरीदता है। उसके उपरिव्यय ₹20 हैं। वह इलेक्ट्रॉनिक वस्तु को ₹440 में बेचता है और x% लाभ अर्जित करता है। x का मान है:

(1) 56

(2) **76** ✔

(3) 46

(4) 66

Q.113 Find the total surface area of a cone whose radius is 7 cm and slant height is 25 cm.
(Use π = 22/7)
उस शंकु का संपूर्ण पृष्ठीय क्षेत्रफल ज्ञात कीजिए जिसकी त्रिज्या 7 cm और तिर्यक ऊंचाई 25 cm है।
(π = 22/7 का प्रयोग कीजिए)

(1) 792 cm^2
(2) 736 cm^2
(3) 704 cm^2 ✔
(4) 814 cm^2

Q.114 Three friends, P, Q and R, started a business by investing ₹6,200, ₹9,200 and ₹1,400, respectively. After 8 months, P withdrew ₹460, Q withdrew ₹980 and R invested ₹960 more. At the end of the year, the company made a profit of ₹83,200, out of which they donated 48%. Find R's share of the profit (in ₹).
तीन दोस्तों, P, Q और R ने क्रमशः ₹6,200, ₹9,200 और ₹1,400 का निवेश करके एक व्यवसाय शुरूकिया। 8 महीने बाद, P ने ₹460 निकाल लिए, Q ने ₹980 निकाल लिए और R ने ₹960 का और निवेश किया। वर्ष के अंत में, कंपनी को ₹83,200 का लाभ हुआ, जिसमें से उन्होंने 48% दान कर दिया। R कालाभ हिस्सा (₹ में) ज्ञात कीजिए।

(1) 4,478
(2) 4,472 ✔
(3) 4,479
(4) 4,490

Q.115 Two taps can fill a tank in 3 hours and 65 hours, respectively. A third tap can empty it in 65 hours. If all the taps are opened together, how much time (in hours) will it take to fill one-third of the empty tank?
दो नल एक टंकी को क्रमशः 3 घंटे और 65 घंटे में भर सकते हैं। तीसरा नल उसे 65 घंटे में खाली करसकता है। यदि सभी नल एक साथ खोले जाएं, तो खाली टंकी का एक-तिहाई भाग भरने में कितनासमय (घंटों में) लगेगा?

(1) 3
(2) 2
(3) 4
(4) 1 ✔

Q.116 The circumference of the base of a cylindrical vessel is 440 cm and its height is 15 cm. How many litres of water can it hold? (Take π = 22/7)
एक बेलनाकार पात्र के आधार की परिधि 440 cm है और इसकी ऊंचाई 15 cm है। इसमें कितने लीटर पानी आ सकता है? (π = 22/7 लीजिए)

(1) 272
(2) 246
(3) 231 ✔
(4) 216

Q.117 A traveller goes from city A to city B at a speed of 60 km/h and returns by the same route at a speed of 40 km/h. If the total time taken for the whole journey is 5 hours, find the distance between the two cities.
एक यात्री शहर A से शहर B तक 60 km/h की चाल से जाता है और उसी मार्ग से 40 km/h की चालसे वापस आता है। यदि पूरी यात्रा में कुल समय 5 घंटे लगता है, तो दोनों शहरों के बीच की दूरी ज्ञातकीजिए।

(1) 120 km ✔
(2) 200 km
(3) 100 km
(4) 150 km

Q.118 Find the surface area of a sphere whose radius is 7 cm. (Use π = 22/7)
उस गोले का पृष्ठीय क्षेत्रफल ज्ञात कीजिए जिसकी त्रिज्या 7 cm है। (π = 22/7 का प्रयोग कीजिए)

(1) 616 cm² ✔
(2) 462 cm²
(3) 308 cm²
(4) 784 cm²

Q.119 The sides of a triangle are 13 cm, 14 cm, and 15 cm. Find the area of the triangle.
एक त्रिभुज की भुजाएँ 13 cm, 14 cm और 15 cm हैं। त्रिभुज का क्षेत्रफल ज्ञात कीजिए।

(1) 80 cm²
(2) 90 cm²
(3) 84 cm² ✔
(4) 82 cm²

Q.120 A person incurs a loss of 10% on selling an article for ₹270. If he sells it for ₹303, what will be his profit/loss percentage?
किसी व्यक्ति को एक वस्तु को ₹270 में बेचने पर 10% की हानि होती है। यदि वह उसे ₹303 में बेचता है, तो उसका लाभ/हानि प्रतिशत कितना होगा?

(1) Profit, 1% / लाभ, 1% ✔
(2) Profit, 2% / लाभ, 2%
(3) Loss, 3% / हानि, 3%
(4) Loss, 2% / हानि, 2%

Hindi Language and Comprehension

Q.121 'जो पहले कभी घटित नहीं हुआ हो' वाक्यांश के लिए एक शब्द होगा-

(1) अभ्याक्रमी
(2) घटनाचक्र
(3) अभूतपूर्व ✔
(4) अद्रितपूर्व

Q.122 दिए गए वाक्य में रिक्त स्थान के लिए उपयुक्त विशेषण चुनें।
तुम्हारा सूटकेस बहुत ..... है।

(1) तेज
(2) कायर
(3) ईमानदार
(4) भारी ✔

Q.123 सफलता कभी-कभी क्षणभर में नष्ट होने वाली होती है, इसलिए मेहनत जारी रखनी चाहिए।
रेखांकित वाक्यांश के लिए सार्थक शब्द क्या है?

(1) क्षुधातुर
(2) सत्यवादी
(3) क्षणभंगुर ✔
(4) सुषुप्सा

Q.124 'जो किये गये उपकारों को मानता है' वाक्यांश के लिए सार्थक शब्द होगा -

(1) कृतित्त्व

(2) कृतघ्न

(3) **कृतज्ञ ✔**

(4) बहुज्ञ

Q.125 निम्नलिखित वाक्यांश के लिए सार्थक शब्द चुनिये जो व्यक्ति भाग्य पर विश्वास करे

(1) भानुमती

(2) बहुश्रुत

(3) **भाग्यवादी ✔**

(4) भास्वर

Q.126 'बढ़-चढ़ कर तीखी बातें कहना' अर्थ के लिए सही मुहावरा क्या है?

(1) साठ-गाँठ करना

(2) सूरज को दीपक दिखाना

(3) **जबान कैंची की तरह चलना ✔**

(4) दाँतों तले उँगली दबाना

Q.127 निम्नलिखित में से किस मुहावरे का अर्थ संगत नहीं है?

(1) शीशे में मुँह देखो - अपनी योग्यता अयोग्यता को समझना

(2) सात घाट का पानी पीना - विस्तृत अनुभव होना

(3) हाथ उठाना - मारने को तत्पर होना

(4) **भाड़े का टट्टू - प्रतीक्षा करना ✔**

Q.128 दिए गए वाक्य को क्रम में लिखें - और पुनरुत्थान मेंमहत्वपूर्ण भूमिका निभाई हैआधुनिक शिक्षा प्रणाली नेग्रामीण क्षेत्रों के विकास

(1) 4321

(2) 4312

(3) **3412 ✔**

(4) 2134

Q.129 विशेषण के आधार पर निम्न वाक्य पूर्ण करें - यह _____ घड़ी मेरे पिता ने खरीदी है।

(1) आलसी

(2) **कीमती ✔**

(3) मानसी

(4) मालती

Q.130 रेखांकित कारक चिह्न के आधार पर कारक के उचित भेद का चुनाव करें- उसने पुरस्कार अपने भाई को समर्पित किया। वाक्य में ..... कारक है।

(1) संबोधन कारक

(2) अधिकरण कारक

(3) अपादान कारक

(4) **संप्रदान कारक ✔**

Q.131 'अंडे सेना' मुहावरे का अर्थ निम्न में से है--

(1) घर में बेकार बैठना ✔

(2) पैसा खर्च न करना

(3) अंडों की रखवाली करना

(4) भेद छिपाए रखना

Q.132 नीचे दिए विकल्पों में से सही पदक्रम वाला वाक्य चुनें।

(1) वह किसी दूसरे की टोपी उठाकर चलता बना। ✔

(2) वह चलता बना उठाकर दूसरे की टोपी किसी।

(3) दूसरे की टोपी वह किसी उठाकर चलता बना।

(4) उठाकर दूसरे की टोपी चलता बना वह किसी।

Q.133 दिए गए वाक्यांश के लिए सार्थक शब्द चुनें- जो आने या होने वाला हो

(1) भावी ✔

(2) अति

(3) भूत

(4) वर्तमान

Q.134 'दिन भर चले अढ़ाई कोस' लोकोक्ति का क्या अर्थ है?

(1) समय बहुत लगा और काम बहुत थोड़ा हुआ ✔

(2) दो की लड़ाई में तीसरे की बन आती है

(3) आलसी होना

(4) कोई काम न करना

Q.135 रेशमा धीरे-धीरे चल रही है। वाक्य में ..... क्रिया-विशेषण है।
दिए गए विकल्प में से क्रिया-विशेषण के उचित भेद को चुन कर वाक्य पूर्ण करें -

(1) स्थानवाचक

(2) रीतिवाचक ✔

(3) कालवाचक

(4) परिमाणवाचक

Q.136 'ज्यों-ज्यों भीजे कामरी त्यों-त्यों भारी होय' लोकोक्ति का अर्थ क्या है?

(1) झूठा आदमी एक बात पर पक्का नहीं रह पाता।

(2) जैसे-जैसे समयन बीतता है ज़िम्मेदारियाँ बढ़ती जाती हैं। ✔

(3) लाभ के लालच में चापलूसी करनी पड़ती है।

(4) जहाँ कोई आकर्षण होगा वहाँ लोग जमा होंगे ही।

Q.137 निम्नलिखित वाक्य को उपयुक्त विशेषण के द्वारा पूरा कीजिए- जंगल में _____ हाथियों को देखकर हम डर गएँ।

(1) दहाड़ते

(2) चीखते

(3) चिंघाड़ते ✔

(4) रंभाते

Q.138 दिए गए वाक्य में रिक्त स्थान के लिए उपयुक्त कारक चुनें।
हमारा कर्तव्य यह कि दुखियों ..... सहायता की जाए।

(1) के
(2) में
(3) की ✔
(4) कि

Q.139 संजना गाती है। वाक्य में ..... क्रिया है।
दिए गए विकल्प में से क्रिया के उचित भेद को चुन कर वाक्य पूर्ण करें -

(1) अकर्मक क्रिया ✔
(2) प्रेरणार्थक क्रिया
(3) पूर्वकालिक क्रिया
(4) संयुक्त क्रिया

Q.140 निम्नलिखित मुहावरे का अर्थ बताइएराई का पहाड़ बनाना

(1) परिश्रम करना
(2) गुस्सा होना
(3) कठिनाई का सामना करना
(4) छोटी बात को बड़ा चढ़ा कर कहना ✔

Q.141 दिए गए वाक्य के किस भाग में त्रुटि है?
संपादक ने लेखक से कहा कि प्रारंभिक अनुछेद में विषय की पृष्ठभूमि स्पष्ट होनी चाहिए।

(1) प्रारंभिक
(2) अनुछेद ✔
(3) संपादक
(4) पृष्ठभूमि

Q.142 दिए गए वाक्य के किस भाग में त्रुटि है?
आप किस हेतू इतना परिश्रम करते हैं?

(1) आप किस हेतू ✔
(2) करते हैं?
(3) परिश्रम
(4) इतना

Q.143 पर्यावरण की रक्षा के लिए हम सबका संकल्प आवश्यक है।
वाक्य में प्रयुक्त संकल्प शब्द का विलोम क्या है।

(1) प्रतिज्ञा
(2) निर्णय
(3) विकल्प ✔
(4) इच्छाशक्ति

Q.144 निम्नलिखित वाक्य में रेखांकित शब्द का विलोम शब्द कौन सा है?
निरक्षर व्यक्ति अखबार नहीं पढ़ सकता।

(1) साक्षर ✔
(2) धूर्त
(3) समझदार
(4) अनपढ़

Q.145 नीचे दिये गये वाक्य के किस भाग में त्रुटि है?
जीवन ओर साहित्य का घनिष्ठ संबंध है।

(1) जीवन ओर ✔
(2) संबंध है
(3) का घनिष्ठ
(4) साहित्य

Q.146 निम्नलिखित वाक्य में रेखांकित शब्द का पर्यायवाची शब्द चुनियेतोता बहुत प्यारा पक्षी होता है

(1) कोकिला
(2) शुक ✔
(3) तड़ाग
(4) सुरभि

Q.147 योग साधक ध्यान में पूरी तरह लीन रहता है।
वाक्य में प्रयुक्त लीन शब्द का पर्यायवाची क्या है?

(1) उदधि
(2) पराक्रम
(3) अनुरक्त ✔
(4) पराश्रित

Q.148 कला का सृजन कलाकार की कल्पना का प्रतिफल है।
वाक्य में प्रयुक्त सृजन शब्द का विलोम क्या है।

(1) निर्माण
(2) संहार ✔
(3) सृष्टि
(4) उत्पत्ति

Q.149 निम्नलिखित वाक्य में रेखांकित शब्द का विलोम शब्द चुनिये- महाभारत में अर्जुन युद्ध से विमुख हो गए थे

(1) आरंभ
(2) पलायन
(3) उन्मुख ✔
(4) समापन

Q.150 दिए गए वाक्य के किस भाग में त्रुटि है?
यात्रियों ने मध्याहन में एक विशाल वृक्ष की छाया में विश्राम किया।

(1) मध्याहन ✔
(2) वृक्ष
(3) यात्रियों
(4) विश्राम

QuickSarkari.com | WhatsApp Channel | Telegram: t.me/quick_sarkari

Q.151

नीचे दिए गए गद्यांश को पढ़कर निम्नलिखित पाँच प्रश्नों के उत्तर दिए गए विकल्पों में से चुनें।
राष्ट्र का तीसरा अंग जन की संस्कृति है। मनुष्यों ने युग-युगों में जिस सभ्यता का निर्माण किया है वही उसके जीवन की श्वास- प्रश्वास है। बिना संस्कृति के जन की कल्पना कबंधमात्र है; संस्कृति ही जन का मस्तिष्क है। संस्कृति के विकास और अभ्युदय के द्वारा ही राष्ट्र की वृद्धि संभव है। राष्ट्र के समग्र रूप में भूमि और जन के साथ-साथ जन की संस्कृति का महत्त्वपूर्ण स्थान है। यदि भूमि और जन अपनी संस्कृति से विरहित कर दिये जायें तो राष्ट्र का लोप समझना चाहिए। जीवन के विटप का पुष्प संस्कृति है। संस्कृति के सौन्दर्य और सौरभ में ही राष्ट्रीय जन के जीवन का सौन्दर्य और यश अंतर्निहित है। ज्ञान और कर्म दोनों के पारस्परिक प्रकाश की संज्ञा संस्कृति है। भूमि पर बसनेवाले जन ने ज्ञान के क्षेत्र में जो सोचा है और कर्म के क्षेत्र में जो रचा है, दोनों के रूप में हमें राष्ट्रीय संस्कृति के दर्शन मिलते हैं। जीवन के विकास की युक्ति ही संस्कृति के रूप में प्रकट होती है। प्रत्येक जाति अपनी-अपनी विशेषताओं के साथ इस युक्ति को निश्चित करती है और उससे प्रेरित संस्कृति का विकास करती है। इस दृष्टि से प्रत्येक जन की अपनी-अपनी भावना के अनुसार पृथक् पृथक् संस्कृतियाँ राष्ट्र में विकसित होती हैं, परन्तु उन सबका मूल आधार पारस्परिक सहिष्णुता और समन्वय पर निर्भर है।जंगल में जिस प्रकार अनेक लता, वृक्ष और वनस्पति अपने अदम्य भाव से उठते हुए पारस्परिक सम्मिलन से अविरोधी स्थिति प्राप्त करते हैं, उसी प्रकार राष्ट्रीय जन अपनी संस्कृतियों के द्वारा एक-दूसरे के साथ मिलकर राष्ट्र में रहते हैं। जिस प्रकार जल के अनेक प्रवाह नदियों के रूप में मिलकर समुद्र में एकरूपता प्राप्त करते हैं, उसी प्रकार राष्ट्रीय जीवन की अनेक विधियाँ राष्ट्रीय संस्कृति में समन्वय प्राप्त करती हैं। समन्वययुक्त जीवन ही राष्ट्र का सुखदायी रूप है।

नीचे दिए गए विकल्पों में से उपरोक्त गद्यांश का भाव पहचानें।

(1) राष्ट्र का सांस्कृतिक विकास ✔
(2) राष्ट्र का अधिकार
(3) राष्ट्र के विभेद
(4) राष्ट्र की समस्याएं

Q.152

नीचे दिए गए गद्यांश को पढ़कर निम्नलिखित पाँच प्रश्नों के उत्तर दिए गए विकल्पों में से चुनें।
राष्ट्र का तीसरा अंग जन की संस्कृति है। मनुष्यों ने युग-युगों में जिस सभ्यता का निर्माण किया है वही उसके जीवन की श्वास- प्रश्वास है। बिना संस्कृति के जन की कल्पना कबंधमात्र है; संस्कृति ही जन का मस्तिष्क है। संस्कृति के विकास और अभ्युदय के द्वारा ही राष्ट्र की वृद्धि संभव है। राष्ट्र के समग्र रूप में भूमि और जन के साथ-साथ जन की संस्कृति का महत्त्वपूर्ण स्थान है। यदि भूमि और जन अपनी संस्कृति से विरहित कर दिये जायें तो राष्ट्र का लोप समझना चाहिए। जीवन के विटप का पुष्प संस्कृति है। संस्कृति के सौन्दर्य और सौरभ में ही राष्ट्रीय जन के जीवन का सौन्दर्य और यश अंतर्निहित है। ज्ञान और कर्म दोनों के पारस्परिक प्रकाश की संज्ञा संस्कृति है। भूमि पर बसनेवाले जन ने ज्ञान के क्षेत्र में जो सोचा है और कर्म के क्षेत्र में जो रचा है, दोनों के रूप में हमें राष्ट्रीय संस्कृति के दर्शन मिलते हैं। जीवन के विकास की युक्ति ही संस्कृति के रूप में प्रकट होती है। प्रत्येक जाति अपनी-अपनी विशेषताओं के साथ इस युक्ति को निश्चित करती है और उससे प्रेरित संस्कृति का विकास करती है। इस दृष्टि से प्रत्येक जन की अपनी-अपनी भावना के अनुसार पृथक् पृथक् संस्कृतियाँ राष्ट्र में विकसित होती हैं, परन्तु उन सबका मूल आधार पारस्परिक सहिष्णुता और समन्वय पर निर्भर है।जंगल में जिस प्रकार अनेक लता, वृक्ष और वनस्पति अपने अदम्य भाव से उठते हुए पारस्परिक सम्मिलन से अविरोधी स्थिति प्राप्त करते हैं, उसी प्रकार राष्ट्रीय जन अपनी संस्कृतियों के द्वारा एक-दूसरे के साथ मिलकर राष्ट्र में रहते हैं। जिस प्रकार जल के अनेक प्रवाह नदियों के रूप में मिलकर समुद्र में एकरूपता प्राप्त करते हैं, उसी प्रकार राष्ट्रीय जीवन की अनेक विधियाँ राष्ट्रीय संस्कृति में समन्वय प्राप्त करती हैं। समन्वययुक्त जीवन ही राष्ट्र का सुखदायी रूप है।

नीचे दिए गए विकल्पों में से उपरोक्त गद्यांश का मुख्य विषय पहचानें ।

(1) संस्कृति विरोध
(2) राष्ट्रीय विभेद
(3) राष्ट्र और संस्कृति ✔
(4) सभ्यता का संकट

QuickSarkari.com | WhatsApp Channel | Telegram: t.me/quick_sarkari

Q.153

नीचे दिए गए गद्यांश को पढ़कर निम्नलिखित पाँच प्रश्नों के उत्तर दिए गए विकल्पों में से चुनें।
राष्ट्र का तीसरा अंग जन की संस्कृति है। मनुष्यों ने युग-युगों में जिस सभ्यता का निर्माण किया है वही उसके जीवन की श्वास- प्रश्वास है। बिना संस्कृति के जन की कल्पना कबंधमात्र है; संस्कृति ही जन का मस्तिष्क है। संस्कृति के विकास और अभ्युदय के द्वारा ही राष्ट्र की वृद्धि संभव है। राष्ट्र के समग्र रूप में भूमि और जन के साथ-साथ जन की संस्कृति का महत्त्वपूर्ण स्थान है। यदि भूमि और जन अपनी संस्कृति से विरहित कर दिये जायें तो राष्ट्र का लोप समझना चाहिए। जीवन के विटप का पुष्प संस्कृति है। संस्कृति के सौन्दर्य और सौरभ में ही राष्ट्रीय जन के जीवन का सौन्दर्य और यश अंतर्निहित है। ज्ञान और कर्म दोनों के पारस्परिक प्रकाश की संज्ञा संस्कृति है। भूमि पर बसनेवाले जन ने ज्ञान के क्षेत्र में जो सोचा है और कर्म के क्षेत्र में जो रचा है, दोनों के रूप में हमें राष्ट्रीय संस्कृति के दर्शन मिलते हैं। जीवन के विकास की युक्ति ही संस्कृति के रूप में प्रकट होती है। प्रत्येक जाति अपनी-अपनी विशेषताओं के साथ इस युक्ति को निश्चित करती है और उससे प्रेरित संस्कृति का विकास करती है। इस दृष्टि से प्रत्येक जन की अपनी-अपनी भावना के अनुसार पृथक् पृथक् संस्कृतियाँ राष्ट्र में विकसित होती हैं, परन्तु उन सबका मूल आधार पारस्परिक सहिष्णुता और समन्वय पर निर्भर है।जंगल में जिस प्रकार अनेक लता, वृक्ष और वनस्पति अपने अदम्य भाव से उठते हुए पारस्परिक सम्मिलन से अविरोधी स्थिति प्राप्त करते हैं, उसी प्रकार राष्ट्रीय जन अपनी संस्कृतियों के द्वारा एक-दूसरे के साथ मिलकर राष्ट्र में रहते हैं। जिस प्रकार जल के अनेक प्रवाह नदियों के रूप में मिलकर समुद्र में एकरूपता प्राप्त करते हैं, उसी प्रकार राष्ट्रीय जीवन की अनेक विधियाँ राष्ट्रीय संस्कृति में समन्वय प्राप्त करती हैं। समन्वययुक्त जीवन ही राष्ट्र का सुखदायी रूप है।

नीचे दिए गए विकल्पों में से उपरोक्त गद्यांश के तथ्य पहचानें।

(1) गद्यांश में तथ्य यह है कि राजनीतिक स्वार्थ पूर्ति संस्कृति है।
(2) गद्यांश में तथ्य यह है कि ज्ञान और कर्म दोनों के पारस्परिक प्रकाश की संज्ञा संस्कृति है। ✔
(3) गद्यांश में तथ्य यह है कि समन्वययुक्त जीवन से राष्ट्र सुखी नहीं होता।
(4) गद्यांश में तथ्य यह है कि आत्मवालोकन ही संस्कृति है।

Q.154

नीचे दिए गए गद्यांश को पढ़कर निम्नलिखित पाँच प्रश्नों के उत्तर दिए गए विकल्पों में से चुनें।
राष्ट्र का तीसरा अंग जन की संस्कृति है। मनुष्यों ने युग-युगों में जिस सभ्यता का निर्माण किया है वही उसके जीवन की श्वास- प्रश्वास है। बिना संस्कृति के जन की कल्पना कबंधमात्र है; संस्कृति ही जन का मस्तिष्क है। संस्कृति के विकास और अभ्युदय के द्वारा ही राष्ट्र की वृद्धि संभव है। राष्ट्र के समग्र रूप में भूमि और जन के साथ-साथ जन की संस्कृति का महत्त्वपूर्ण स्थान है। यदि भूमि और जन अपनी संस्कृति से विरहित कर दिये जायें तो राष्ट्र का लोप समझना चाहिए। जीवन के विटप का पुष्प संस्कृति है। संस्कृति के सौन्दर्य और सौरभ में ही राष्ट्रीय जन के जीवन का सौन्दर्य और यश अंतर्निहित है। ज्ञान और कर्म दोनों के पारस्परिक प्रकाश की संज्ञा संस्कृति है। भूमि पर बसनेवाले जन ने ज्ञान के क्षेत्र में जो सोचा है और कर्म के क्षेत्र में जो रचा है, दोनों के रूप में हमें राष्ट्रीय संस्कृति के दर्शन मिलते हैं। जीवन के विकास की युक्ति ही संस्कृति के रूप में प्रकट होती है। प्रत्येक जाति अपनी-अपनी विशेषताओं के साथ इस युक्ति को निश्चित करती है और उससे प्रेरित संस्कृति का विकास करती है। इस दृष्टि से प्रत्येक जन की अपनी-अपनी भावना के अनुसार पृथक् पृथक् संस्कृतियाँ राष्ट्र में विकसित होती हैं, परन्तु उन सबका मूल आधार पारस्परिक सहिष्णुता और समन्वय पर निर्भर है।जंगल में जिस प्रकार अनेक लता, वृक्ष और वनस्पति अपने अदम्य भाव से उठते हुए पारस्परिक सम्मिलन से अविरोधी स्थिति प्राप्त करते हैं, उसी प्रकार राष्ट्रीय जन अपनी संस्कृतियों के द्वारा एक-दूसरे के साथ मिलकर राष्ट्र में रहते हैं। जिस प्रकार जल के अनेक प्रवाह नदियों के रूप में मिलकर समुद्र में एकरूपता प्राप्त करते हैं, उसी प्रकार राष्ट्रीय जीवन की अनेक विधियाँ राष्ट्रीय संस्कृति में समन्वय प्राप्त करती हैं। समन्वययुक्त जीवन ही राष्ट्र का सुखदायी रूप है।

नीचे दिए गए विकल्पों में से प्रकाश का विलोम शब्द चुनें।

(1) ज्वाला
(2) अंधकार ✔
(3) प्रकाशित
(4) जुगनू

Q.155

नीचे दिए गए गद्यांश को पढ़कर निम्नलिखित पाँच प्रश्नों के उत्तर दिए गए विकल्पों में से चुनें।
राष्ट्र का तीसरा अंग जन की संस्कृति है। मनुष्यों ने युग-युगों में जिस सभ्यता का निर्माण किया है वही उसके जीवन की श्वास- प्रश्वास है। बिना संस्कृति के जन की कल्पना कबंधमात्र है; संस्कृति ही जन का मस्तिष्क है। संस्कृति के विकास और अभ्युदय के द्वारा ही राष्ट्र की वृद्धि संभव है। राष्ट्र के समग्र रूप में भूमि और जन के साथ-साथ जन की संस्कृति का महत्त्वपूर्ण स्थान है। यदि भूमि और जन अपनी संस्कृति से विरहित कर दिये जायें तो राष्ट्र का लोप समझना चाहिए। जीवन के विटप का पुष्प संस्कृति है। संस्कृति के सौन्दर्य और सौरभ में ही राष्ट्रीय जन के जीवन का सौन्दर्य और यश अंतर्निहित है। ज्ञान और कर्म दोनों के पारस्परिक प्रकाश की संज्ञा संस्कृति है। भूमि पर बसनेवाले जन ने ज्ञान के क्षेत्र में जो सोचा है और कर्म के क्षेत्र में जो रचा है, दोनों के रूप में हमें राष्ट्रीय संस्कृति के दर्शन मिलते हैं। जीवन के विकास की युक्ति ही संस्कृति के रूप में प्रकट होती है। प्रत्येक जाति अपनी-अपनी विशेषताओं के साथ इस युक्ति को निश्चित करती है और उससे प्रेरित संस्कृति का विकास करती है। इस दृष्टि से प्रत्येक जन की अपनी-अपनी भावना के अनुसार पृथक् पृथक् संस्कृतियाँ राष्ट्र में विकसित होती हैं, परन्तु उन सबका मूल आधार पारस्परिक सहिष्णुता और समन्वय पर निर्भर है।जंगल में जिस प्रकार अनेक लता, वृक्ष और वनस्पति अपने अदम्य भाव से उठते हुए पारस्परिक सम्मिलन से अविरोधी स्थिति प्राप्त करते हैं, उसी प्रकार राष्ट्रीय जन अपनी संस्कृतियों के द्वारा एक-दूसरे के साथ मिलकर राष्ट्र में रहते हैं। जिस प्रकार जल के अनेक प्रवाह नदियों के रूप में मिलकर समुद्र में एकरूपता प्राप्त करते हैं, उसी प्रकार राष्ट्रीय जीवन की अनेक विधियाँ राष्ट्रीय संस्कृति में समन्वय प्राप्त करती हैं। समन्वययुक्त जीवन ही राष्ट्र का सुखदायी रूप है।

नीचे दिए गए विकल्पों में से समन्वय का शब्दार्थ चुनें।

(1) संबंध तोड़ना
(2) स्वार्थ के वशीभूत होना
(3) **समान रूप से मिलना ✔**
(4) बिखराव की स्थिति में जाना

Q.156

प्रस्तुत गद्यांश को पढ़कर नीचे दिए गए प्रश्नों के उत्तर दें ।
कहते हैं, और ठीक ही कहते होंगे, कि मनुष्य से भिन्न अवर सृष्टि में भी इंद्रियगृहीत बिंब किसी-न-किसी रूप में रहते हैं, पर वहाँ दो बातों की कमी है। इन बिंबों को विविक्त करने की शक्ति और विविक्तीकृत बिंबों को अपनी इच्छा से संकल्प पूर्वक नए सिरे से नए प्रसार-विस्तार या परम्युटेशन कॉम्बिनेशन की प्रक्रिया द्वारा नई अर्थात् प्रकृति प्रदत्त वस्तुओं से भिन्न सारी चीज बनाने की क्षमता।
शब्द के बिंबों के विविक्तीकरण का परिणाम भाषा, काव्य और संगीत हैं, रूप बिंबों के विविक्तीकरण के फल रंग, उच्चावचता, हस्व- दीर्घ वर्तुल आदि बिंब और फिर संकल्पशक्ति द्वारा विनियुक्त होने पर चित्र, मूर्ति, वास्तु, वस्त्र, अलंकरण, साज-सज्जा आदि। इसी तरह और भी इंद्रियगृहीत बिंबों का विविक्तीकरण, और संकल्प संयोजन से मानव सृष्ट सहस्रो नई चीजें। यह कोई मामूली बात नहीं है। अभ्यास के कारण इनका महत्व भुला दिया जाता है। पर भुलाना चाहिए नहीं। मनुष्य कुछ भुलक्कड़ हो गया है। लेकिन यह बहुत बड़ा दोष भी नहीं है। न भूले तो जीना ही दूभर हो जाए। मगर ऐसी बातों का भूलना जरूर बुरा है, जो उसे जीने की शक्ति देती हैं, सीधे खड़ा होने की प्रेरणा देती हैं।किस दिन एक शुभ मुहूर्त में मनुष्य ने मिट्टी के दीये, रुई की बाती, चकमक की चिनगारी और बीजों से निकलनेवाले स्रोत का संयोग देखा। अंधकार को जीता जा सकता है। दिया जलाया जा सकता है। घने अंधकार में डूबी धरती को आंशिक रूप में आलोकित किया जा सकता है।

दिए गए विकल्पों में से गद्यांश के लिए उपयुक्त शीर्षक का चुनाव कीजिए।

(1) **मनुष्य और उसकी निर्मिति: एक चेतस अन्वेषण ✔**
(2) प्रकृति का अंत: विज्ञान
(3) बिंब से साहित्य सृजन
(4) अंधकार में दीप्ति : एक विचार यात्रा

Q.157

प्रस्तुत गद्यांश को पढ़कर नीचे दिए गए प्रश्नों के उत्तर दें ।
कहते हैं, और ठीक ही कहते होंगे, कि मनुष्य से भिन्न अवर सृष्टि में भी इंद्रियगृहीत बिंब किसी-न-किसी रूप में रहते हैं, पर वहाँ दो बातों की कमी है। इन बिंबों को विविक्त करने की शक्ति और विविक्तीकृत बिंबों को अपनी इच्छा से संकल्प पूर्वक नए सिरे से नए प्रसार-विस्तार या परम्युटेशन कॉम्बिनेशन की प्रक्रिया द्वारा नई अर्थात् प्रकृति प्रदत्त वस्तुओं से भिन्न सारी चीज बनाने की क्षमता।
शब्द के बिंबों के विविक्तीकरण का परिणाम भाषा, काव्य और संगीत हैं, रूप बिंबों के विविक्तीकरण के फल रंग, उच्चावचता, हस्व- दीर्घ वर्तुल आदि बिंब और फिर संकल्पशक्ति द्वारा विनियुक्त होने पर चित्र, मूर्ति, वास्तु, वस्त्र, अलंकरण, साज-सज्जा आदि। इसी तरह और भी इंद्रियगृहीत बिंबों का विविक्तीकरण, और संकल्प संयोजन से मानव सृष्ट सहस्रो नई चीजें। यह कोई मामूली बात नहीं है। अभ्यास के कारण इनका महत्व भुला दिया जाता है। पर भुलाना चाहिए नहीं। मनुष्य कुछ भुलक्कड़ हो गया है। लेकिन यह बहुत बड़ा दोष भी नहीं है। न भूले तो जीना ही दूभर हो जाए। मगर ऐसी बातों का भूलना जरूर बुरा है, जो उसे जीने की शक्ति देती हैं, सीधे खड़ा होने की प्रेरणा देती हैं।किस दिन एक शुभ मुहूर्त में मनुष्य ने मिट्टी के दीये, रुई की बाती, चकमक की चिनगारी और बीजों से निकलनेवाले स्रोत का संयोग देखा। अंधकार को जीता जा सकता है। दिया जलाया जा सकता है। घने अंधकार में डूबी धरती को आंशिक रूप में आलोकित किया जा सकता है।

दिए गए विकल्पों में से प्रस्तुत गद्यांश में प्रयुक्त 'विविक्तिकरण' शब्द का अर्थ का चुनाव कीजिए ।

(1) अनुभूतियों को यथावत ग्रहण करना
(2) पुनः स्मरण करना
(3) **स्पष्ट रूप से पहचानकर अलग करना ✔**
(4) तुलना करना

Q.158

प्रस्तुत गद्यांश को पढ़कर नीचे दिए गए प्रश्नों के उत्तर दें ।
कहते हैं, और ठीक ही कहते होंगे, कि मनुष्य से भिन्न अवर सृष्टि में भी इंद्रियगृहीत बिंब किसी-न-किसी रूप में रहते हैं, पर वहाँ दो बातों की कमी है। इन बिंबों को विविक्त करने की शक्ति और विविक्तीकृत बिंबों को अपनी इच्छा से संकल्प पूर्वक नए सिरे से नए प्रसार-विस्तार या परम्युटेशन कॉम्बिनेशन की प्रक्रिया द्वारा नई अर्थात् प्रकृति प्रदत्त वस्तुओं से भिन्न सारी चीज बनाने की क्षमता।
शब्द के बिंबों के विविक्तीकरण का परिणाम भाषा, काव्य और संगीत हैं, रूप बिंबों के विविक्तीकरण के फल रंग, उच्चावचता, हस्व- दीर्घ वर्तुल आदि बिंब और फिर संकल्पशक्ति द्वारा विनियुक्त होने पर चित्र, मूर्ति, वास्तु, वस्त्र, अलंकरण, साज-सज्जा आदि। इसी तरह और भी इंद्रियगृहीत बिंबों का विविक्तीकरण, और संकल्प संयोजन से मानव सृष्ट सहस्रो नई चीजें। यह कोई मामूली बात नहीं है। अभ्यास के कारण इनका महत्व भुला दिया जाता है। पर भुलाना चाहिए नहीं। मनुष्य कुछ भुलक्कड़ हो गया है। लेकिन यह बहुत बड़ा दोष भी नहीं है। न भूले तो जीना ही दूभर हो जाए। मगर ऐसी बातों का भूलना जरूर बुरा है, जो उसे जीने की शक्ति देती हैं, सीधे खड़ा होने की प्रेरणा देती हैं।किस दिन एक शुभ मुहूर्त में मनुष्य ने मिट्टी के दीये, रुई की बाती, चकमक की चिनगारी और बीजों से निकलनेवाले स्रोत का संयोग देखा। अंधकार को जीता जा सकता है। दिया जलाया जा सकता है। घने अंधकार में डूबी धरती को आंशिक रूप में आलोकित किया जा सकता है।

लेखक के अनुसार मनुष्य की कौन-सी प्रवृत्ति खतरनाक नहीं मानी गई है, यद्यपि वह दोष है?

(1) कल्पना करना
(2) **भूल जाना ✔**
(3) अंधकार से डरना
(4) संकल्प करना

Q.159

प्रस्तुत गद्यांश को पढ़कर नीचे दिए गए प्रश्नों के उत्तर दें ।
कहते हैं, और ठीक ही कहते होंगे, कि मनुष्य से भिन्न अवर सृष्टि में भी इंद्रियगृहीत बिंब किसी-न-किसी रूप में रहते हैं, पर वहाँ दो बातों की कमी है। इन बिंबों को विविक्त करने की शक्ति और विविक्तीकृत बिंबों को अपनी इच्छा से संकल्प पूर्वक नए सिरे से नए प्रसार-विस्तार या परम्युटेशन कॉम्बिनेशन की प्रक्रिया द्वारा नई अर्थात् प्रकृति प्रदत्त वस्तुओं से भिन्न सारी चीज बनाने की क्षमता।
शब्द के बिंबों के विविक्तीकरण का परिणाम भाषा, काव्य और संगीत हैं, रूप बिंबों के विविक्तीकरण के फल रंग, उच्चावचता, हस्व- दीर्घ वर्तुल आदि बिंब और फिर संकल्पशक्ति द्वारा विनियुक्त होने पर चित्र, मूर्ति, वास्तु, वस्त्र, अलंकरण, साज-सज्जा आदि। इसी तरह और भी इंद्रियगृहीत बिंबों का विविक्तीकरण, और संकल्प संयोजन से मानव सृष्ट सहस्रो नई चीजें। यह कोई मामूली बात नहीं है। अभ्यास के कारण इनका महत्व भुला दिया जाता है। पर भुलाना चाहिए नहीं। मनुष्य कुछ भुलक्कड़ हो गया है। लेकिन यह बहुत बड़ा दोष भी नहीं है। न भूले तो जीना ही दूभर हो जाए। मगर ऐसी बातों का भूलना जरूर बुरा है, जो उसे जीने की शक्ति देती हैं, सीधे खड़ा होने की प्रेरणा देती हैं।किस दिन एक शुभ मुहूर्त में मनुष्य ने मिट्टी के दीये, रुई की बाती, चकमक की चिनगारी और बीजों से निकलनेवाले स्रोत का संयोग देखा। अंधकार को जीता जा सकता है। दिया जलाया जा सकता है। घने अंधकार में डूबी धरती को आंशिक रूप में आलोकित किया जा सकता है।

गद्यांश में लेखक द्वारा मनुष्य के 'संकल्पपूर्वक संयोजन' की बात करते हुए किन क्षमताओं को उसकी रचनात्मक विशिष्टता के रूप में स्थापित किया गया है?

(1) स्मृति और अनुभूति की क्षमता
(2) **बिंबों को ग्रहण कर उन्हें नवीन संरचना में ढालने की शक्ति ✔**
(3) परंपरा और आधुनिकता के बीच संतुलन साधने की योग्यता
(4) प्रकृति के नियमों को पहचानने की क्षमता

Q.160

प्रस्तुत गद्यांश को पढ़कर नीचे दिए गए प्रश्नों के उत्तर दें ।
कहते हैं, और ठीक ही कहते होंगे, कि मनुष्य से भिन्न अवर सृष्टि में भी इंद्रियगृहीत बिंब किसी-न-किसी रूप में रहते हैं, पर वहाँ दो बातों की कमी है। इन बिंबों को विविक्त करने की शक्ति और विविक्तीकृत बिंबों को अपनी इच्छा से संकल्प पूर्वक नए सिरे से नए प्रसार-विस्तार या परम्युटेशन कॉम्बिनेशन की प्रक्रिया द्वारा नई अर्थात् प्रकृति प्रदत्त वस्तुओं से भिन्न सारी चीज बनाने की क्षमता।
शब्द के बिंबों के विविक्तीकरण का परिणाम भाषा, काव्य और संगीत हैं, रूप बिंबों के विविक्तीकरण के फल रंग, उच्चावचता, हस्व- दीर्घ वर्तुल आदि बिंब और फिर संकल्पशक्ति द्वारा विनियुक्त होने पर चित्र, मूर्ति, वास्तु, वस्त्र, अलंकरण, साज-सज्जा आदि। इसी तरह और भी इंद्रियगृहीत बिंबों का विविक्तीकरण, और संकल्प संयोजन से मानव सृष्ट सहस्रो नई चीजें। यह कोई मामूली बात नहीं है। अभ्यास के कारण इनका महत्व भुला दिया जाता है। पर भुलाना चाहिए नहीं। मनुष्य कुछ भुलक्कड़ हो गया है। लेकिन यह बहुत बड़ा दोष भी नहीं है। न भूले तो जीना ही दूभर हो जाए। मगर ऐसी बातों का भूलना जरूर बुरा है, जो उसे जीने की शक्ति देती हैं, सीधे खड़ा होने की प्रेरणा देती हैं।किस दिन एक शुभ मुहूर्त में मनुष्य ने मिट्टी के दीये, रुई की बाती, चकमक की चिनगारी और बीजों से निकलनेवाले स्रोत का संयोग देखा। अंधकार को जीता जा सकता है। दिया जलाया जा सकता है। घने अंधकार में डूबी धरती को आंशिक रूप में आलोकित किया जा सकता है।

दिए गए विकल्पों में से प्रस्तुत गद्यांश के सारांश का चुनाव कीजिए ।

(1) मनुष्य ने प्रकृति से प्रेरित होकर विज्ञान और कला में महत्वपूर्ण विकास किए हैं।
(2) मनुष्य का निरंतर अभ्यास उसे अपनी शक्तियों को पहचानने में मदद करता है।
(3) मनुष्य ने अपनी इच्छाशक्ति से अंधकार को पराजित किया और प्रकाश उत्पन्न किया।
(4) **मनुष्य की संकल्पशक्ति ने उसे प्रकृति प्रदत्त बिंबों से भिन्न नई वस्तुएं बनाने की क्षमता दी है। ✔**

QuickSarkari.com | WhatsApp Channel | Telegram: t.me/quick_sarkari

English Language and Comprehension

Q.161 Choose the correct passive voice form of the given sentence.
The senior archivist might have cautiously restored the fragile historical manuscript during the specialised preservation workshop session held last weekend.

(1) The fragile historical manuscript was restored by the senior archivist during the specialised preservation workshop session held last weekend.
(2) The fragile historical manuscript might have been restored by the senior archivist during the specialised preservation workshop session held last weekend. ✔
(3) The fragile historical manuscript might be restored by the senior archivist during the specialised preservation workshop session held last weekend.
(4) The fragile historical manuscript might have restored by the senior archivist during the specialised preservation workshop session held last weekend.

Q.162 Choose the most appropriate option to complete the indirect speech of the sentence.
Jimmy said to me, 'Who do you think is going to win the competition this time?"
Jimmy asked me _____ to win the competition _____.

(1) who I think is going / that time
(2) who did I think was going / this time
(3) who I thought is going / this time
(4) who I thought was going / that time ✔

Q.163 Choose the most suitable option to complete the sentence.
_____ the surface lay a hidden treasure that no one in the family had ever been aware of.

(1) Beneath ✔
(2) Amid
(3) Beyond
(4) Among

Q.164 Select the most appropriate option to fill in the blank.
The injured boy _____ before the nurse reaches the hospital.

(1) is dying in pain
(2) has died in pain
(3) will have died in pain ✔
(4) had been died in pain

Q.165 In the given question, a statement divided into different segments is given.
Rearrange all the segments to form a coherent statement.
loomed in the distance (P)/ their snow-capped peaks (Q)/ glistening in the sunlight(R)/ the majestic mountains (S)/

(1) PQRS
(2) SPQR ✔
(3) PRSQ
(4) QSRP

Q.166 Out of the four alternatives, choose the one that can be used as a substitute for the bracketed word segment.
The sudden drop in temperature was (a sign or foreshadowing of an event to come)
of a very cold winter.

(1) Harbinger ✔
(2) Precursor
(3) Follower
(4) Postscript

Q.167 Complete the given sentence by choosing the correct direct speech format from the options.
The principal said, _____

(1) "The annual seminar will be conducted in hybrid mode to ensure greater participation." ✔
(2) "The annual seminar would be conducted in hybrid mode to ensure greater participation."
(3) "The annual seminar is conducted in hybrid mode to ensure greater participation."
(4) "The annual seminar has been conducted in hybrid mode to ensure greater participation."

Q.168 In the given question, a statement divided into different segments is given.
Rearrange all the segments to form a coherent statement.
the aroma of freshly brewed coffee (P)/ buzzed with the chatter of patrons (Q)/ wafting through the air (R)/ the bustling café (S)/

(1) PQRS
(2) SQPR ✔
(3) RSQP
(4) PQSR

Q.169 Choose the correct form of active voice for the following sentence from the options.
The new policy was announced by the manager during the staff meeting yesterday morning.

(1) The manager has announced the new policy during the staff meeting yesterday morning.
(2) The manager announced the new policy during the staff meeting yesterday morning. ✔
(3) The manager had announced the new policy during the staff meeting yesterday morning.
(4) The manager will announce the new policy during the staff meeting yesterday morning.

Q.170 Select the most appropriate option to fill in the blanks.
The architect worked _____severe constraints and produced a salient design ____ intense criticism.

(1) on, by
(2) between, along with
(3) notwithstanding, amidst ✔
(4) among, with

Q.171 Complete the following sentence by choosing the correct option.
She took ___ first train to ___ station, knowing everyone understood exactly which one today.

(1) the, an
(2) a, the
(3) the, the ✔
(4) the, a

Q.172 Substitute one word for the given underlined segment by choosing from the following options.
Endless meetings and constant micromanagement seemed to suck out the vitality and passion.

(1) covet
(2) deflect
(3) expatiate
(4) desiccate ✔

Q.173 Complete the following sentence with the most appropriate option.
There is ..... traffic on the road today because of the holiday.

(1) several
(2) few
(3) many
(4) little ✔

Q.174 In the following question, you are required to fill in the blanks by choosing the option that best completes the sentence.
While discussing the classification of elements in material science, the professor emphasized that although iron is ___ hard metal widely used in construction for its tensile strength, silver remains ___ semi-precious metal valued primarily for its conductivity and ornamental appeal.

(1) a , a ✔
(2) an , an
(3) an , a
(4) a , an

Q.175 Choose the most appropriate option to fill in the blank.
He _____ search for his missing bag after the _____.

(1) comes to / gates closed
(2) is coming to / gates have closed
(3) came to / gates had closed ✔
(4) had come to / gates were closed

Q.176 Select the correct one-word substitution for a person who is habitually dissatisfied, perpetually discontented, and rarely happy with what he has, regardless of the circumstances.

(1) Apostate
(2) Conformist
(3) Malcontent ✔
(4) Melophile

Q.177 In the given question, a statement divided into different segments is given. The first segment is fixed, rearrange the other segments to form a coherent statement.
The economic valuation of/ is becoming a key consideration (A)/ in policy-making and land-use planning (B)/ ecosystem services provided by forests, such as (C)/ water purification, soil stabilization, and climate regulation (D)/

(1) CDAB ✔
(2) DABC
(3) BACD
(4) ADCB

Q.178 In the given question a statement is divided into different segments. The first is fixed, rearrange the other segments to form a meaningful sentence.
I would prefer (Fixed) / to pursue my studies with disciplined earnestness (A) / to devote myself diligently to serious academic engagement (B) / on frivolous and intellectually barren conversations (C) / rather than (D)

(1) I would prefer / B–D–A–C ✔
(2) I would prefer / B–A–D–C
(3) I would prefer / D–B–A–C
(4) I would prefer / A–B–C–D

Q.179 Choose the most appropriate option to complete the sentence.
Despite working hard day and night, the man was _____ by the constant blame he endured at work.

(1) galvanized
(2) distraught ✔
(3) invigorated
(4) complacent

Q.180 Select the most appropriate option that can substitute the underlined words in the given sentence.
He was removed from the project for his unjustified and deliberate refusal to obey authority.

(1) indiscipline
(2) rebellion
(3) contumacy ✔
(4) insolence

Q.181 Choose the most appropriate antonym of the underlined word in the sentence.
The family failed to prove their son's innocence in court because the legal arguments were based on tenuous claims.

(1) flimsy
(2) ephemera
(3) substantial ✔
(4) fragile

Q.182 Select the appropriate antonym of the underlined word in the given sentence.
Many hours of meticulous preparation have gone into writing the book.

(1) Finicky
(2) Vigilant
(3) Fussy
(4) Careless ✔

Q.183 Select the most appropriate antonym of the highlighted word in the following sentence.
Despite widespread scepticism, the research team unveiled a colossal breakthrough, one that promised to reshape existing scientific paradigms, but its practical application was hindered by several minor procedural flaws.

(1) Minuscule ✔
(2) Substantial
(3) Monumental
(4) Immense

Q.184 Identify the word in the given sentence that contains a spelling error and select the option that rectifies this error.
The cogent argument circamscribed the ubiquitous misconceptions, forcing scholars to reconcile conflicting interpretations rigorously.

(1) reconcile
(2) circumscribed ✔
(3) cogent
(4) ubiquitous

Q.185 Select the most appropriate option that can correctly substitute the Underlined part of the given sentence.
With a sarcastic smile, he reminded her that curiosity mend the shoes, especially in a field where uncovering hidden truths often meant becoming part of them.

(1) necessity killed the hen
(2) curiosity killed the cat ✔
(3) insecurity killed the rat
(4) obligation killed the hen

Q.186 In the following question, a statement has been given with highlighted text. You are required to replace the text with the correct proverb from the given alternatives.
When Ravi lost his job, faced financial troubles, and struggled to support his family, he refused to give up. Instead, he worked harder, learned new skills, and eventually secured a better position, proving that a person's true character is revealed when they confront hardships bravely.

(1) every cloud has a silver lining
(2) necessity is the mother of invention
(3) adversity is the touchstone of life ✔
(4) fortune favours the brave

Q.187 Select the most appropriate antonym of the highlighted word in the following sentence.
Despite navigating a series of unforeseen logistical setbacks, the research committee produced an impeccable final report, demonstrating rigorous analysis and exceptional academic precision.

(1) Flawed ✔
(2) Faultless
(3) Exemplary
(4) Pristine

Q.188 Select the INCORRECTLY spelt word.

(1) Bureaucratic
(2) Magnanimous
(3) Conscientious
(4) Appeacement ✔

Q.189 Select the most appropriate option to replace the underlined words in the sentence.
The celebrity was plagued by a long-running accusation, and even after the court formally cleared her of all charges, the public continued to treat her as guilty. They believed her character was fundamentally flawed and unchangeable.

(1) that even a stopped clock tells the right time twice a day
(2) that the tallest tree catches the most wind
(3) **that once a dog is given a bad name, it is hanged ✔**
(4) that a watched pot boils last

Q.190 Choose the most appropriate option to replace the underlined words in the sentence.
When a false narrative was set by her enemies in the office to discredit her, she chose to face that unpleasant situation courageously.

(1) hit the ground running
(2) **bite the bullet ✔**
(3) cut to the chase
(4) call it a day

Q.191

Read the passage carefully and answer the questions given below.
Social mobility refers to the movement of individuals or groups between different levels of a social hierarchy. It shows how people change their social status over time, either improving their position through upward mobility or losing it through downward mobility. Among its various forms, intergenerational mobility, which compares a person's social position with that of their parents, is one of the most significant aspects. It reflects how far a society allows individuals to progress through their own efforts rather than family background.
Education plays a pivotal role in shaping intergenerational mobility. Equal access to education enables individuals from lower socioeconomic groups to acquire the skills and qualifications necessary for better occupations and incomes. However, when educational opportunities are distributed unevenly, existing class divisions continue, and social advancement becomes limited. Hence, education can act both as a ladder for progress and as a wall of restriction, depending on how fairly it is provided.
Government policies, social networks, and labour market conditions also influence the degree of mobility within a nation. When institutions work in compliance with fairness, inclusivity, and transparency, they create conditions for greater equality of opportunity. In contrast, structural barriers hinder progress. Therefore, intergenerational mobility remains an essential measure of how open and just a society truly is, where merit and effort define success.

Select an appropriate title for this passage from the given options.

(1) The Patterns of Social Mobility
(2) **The Dynamics of Social Mobility ✔**
(3) The Causes of Social Mobility
(4) The Limits of Social Mobility

Q.192

Read the passage carefully and answer the questions given below.
Social mobility refers to the movement of individuals or groups between different levels of a social hierarchy. It shows how people change their social status over time, either improving their position through upward mobility or losing it through downward mobility. Among its various forms, intergenerational mobility, which compares a person's social position with that of their parents, is one of the most significant aspects. It reflects how far a society allows individuals to progress through their own efforts rather than family background.
Education plays a pivotal role in shaping intergenerational mobility. Equal access to education enables individuals from lower socioeconomic groups to acquire the skills and qualifications necessary for better occupations and incomes. However, when educational opportunities are distributed unevenly, existing class divisions continue, and social advancement becomes limited. Hence, education can act both as a ladder for progress and as a wall of restriction, depending on how fairly it is provided.
Government policies, social networks, and labour market conditions also influence the degree of mobility within a nation. When institutions work in compliance with fairness, inclusivity, and transparency, they create conditions for greater equality of opportunity. In contrast, structural barriers hinder progress.
Therefore, intergenerational mobility remains an essential measure of how open and just a society truly is, where merit and effort define success.

What is the main idea of the passage?

(1) The passage focuses upon the role of education in shaping social mobility and how equal opportunities can promote fairness and progress in society. ✔

(2) The passage focuses upon the limited nature of social mobility and how government policies hardly influence people's progress.

(3) The passage focuses upon the false promise of social mobility and how merit alone cannot transform one's economic position in modern society.

(4) The passage focuses upon the causes of social mobility and how wealth determines one's progress in society.

QuickSarkari.com | WhatsApp Channel | Telegram: t.me/quick_sarkari

Q.193

Read the passage carefully and answer the questions given below.
Social mobility refers to the movement of individuals or groups between different levels of a social hierarchy. It shows how people change their social status over time, either improving their position through upward mobility or losing it through downward mobility. Among its various forms, intergenerational mobility, which compares a person's social position with that of their parents, is one of the most significant aspects. It reflects how far a society allows individuals to progress through their own efforts rather than family background.
Education plays a pivotal role in shaping intergenerational mobility. Equal access to education enables individuals from lower socioeconomic groups to acquire the skills and qualifications necessary for better occupations and incomes. However, when educational opportunities are distributed unevenly, existing class divisions continue, and social advancement becomes limited. Hence, education can act both as a ladder for progress and as a wall of restriction, depending on how fairly it is provided.
Government policies, social networks, and labour market conditions also influence the degree of mobility within a nation. When institutions work in compliance with fairness, inclusivity, and transparency, they create conditions for greater equality of opportunity. In contrast, structural barriers hinder progress.
Therefore, intergenerational mobility remains an essential measure of how open and just a society truly is, where merit and effort define success.

Identify the structure of the passage.

(1) Chronological
(2) Descriptive
(3) Narrative
(4) Expository ✔

QuickSarkari.com | WhatsApp Channel | Telegram: t.me/quick_sarkari

Q.194

Read the passage carefully and answer the questions given below.

Social mobility refers to the movement of individuals or groups between different levels of a social hierarchy. It shows how people change their social status over time, either improving their position through upward mobility or losing it through downward mobility. Among its various forms, intergenerational mobility, which compares a person's social position with that of their parents, is one of the most significant aspects. It reflects how far a society allows individuals to progress through their own efforts rather than family background.

Education plays a pivotal role in shaping intergenerational mobility. Equal access to education enables individuals from lower socioeconomic groups to acquire the skills and qualifications necessary for better occupations and incomes. However, when educational opportunities are distributed unevenly, existing class divisions continue, and social advancement becomes limited. Hence, education can act both as a ladder for progress and as a wall of restriction, depending on how fairly it is provided.

Government policies, social networks, and labour market conditions also influence the degree of mobility within a nation. When institutions work in compliance with fairness, inclusivity, and transparency, they create conditions for greater equality of opportunity. In contrast, structural barriers hinder progress. Therefore, intergenerational mobility remains an essential measure of how open and just a society truly is, where merit and effort define success.

Identify the tone of the passage.

(1) Informative and Cautionary

(2) Informative and Analytical ✔

(3) Persuasive and Emotional

(4) Analytical and Argumentative

QuickSarkari

Q.195

Read the passage carefully and answer the questions given below.
Social mobility refers to the movement of individuals or groups between different levels of a social hierarchy. It shows how people change their social status over time, either improving their position through upward mobility or losing it through downward mobility. Among its various forms, intergenerational mobility, which compares a person's social position with that of their parents, is one of the most significant aspects. It reflects how far a society allows individuals to progress through their own efforts rather than family background.
Education plays a pivotal role in shaping intergenerational mobility. Equal access to education enables individuals from lower socioeconomic groups to acquire the skills and qualifications necessary for better occupations and incomes. However, when educational opportunities are distributed unevenly, existing class divisions continue, and social advancement becomes limited. Hence, education can act both as a ladder for progress and as a wall of restriction, depending on how fairly it is provided.
Government policies, social networks, and labour market conditions also influence the degree of mobility within a nation. When institutions work in compliance with fairness, inclusivity, and transparency, they create conditions for greater equality of opportunity. In contrast, structural barriers hinder progress. Therefore, intergenerational mobility remains an essential measure of how open and just a society truly is, where merit and effort define success.

Select the correct antonym of the given word from the passage.
Defiance

(1) Compliance ✔
(2) Condition
(3) Opportunity
(4) Fairness

QuickSarkari

Q.196

Read the passage below and answer the questions that follow.
Technological innovation has long been associated with economic growth, but the nature of this relationship is undergoing rapid transformation. In earlier decades, innovation primarily meant improving machinery, expanding industrial capacity, or increasing production efficiency. Today, however, the focus has shifted toward intangible drivers such as data, digital infrastructure, and algorithmic decision-making. Nations that once competed for industrial dominance now compete for intellectual property, computing power, and digital talent. This shift has raised important questions about inclusivity and access. While digital tools have democratized certain opportunities—allowing individuals to start businesses, create content, or learn new skills—large-scale inequalities persist. Many experts warn of a widening gap between countries with strong digital ecosystems and those struggling to build foundational infrastructure. Even within advanced economies, disparities appear in digital literacy, access to high-quality data, and the ability of small firms to adopt emerging technologies. Another issue concerns accountability. As algorithms play a greater role in financial decisions, public policy, healthcare diagnostics, and even criminal justice, debates around transparency and ethical standards have intensified. Critics argue that opaque systems may reinforce biases or operate without clear lines of responsibility. Proponents contend that algorithmic decision- making can outperform human judgment when designed and monitored carefully. Ultimately, the global economy is moving toward a model where

Identify the suitable title for the passage.

(1) Digital Innovation and Global Inequality
(2) **Challenges of Algorithmic Decision-Making ✔**
(3) The Decline of Traditional Economies
(4) Industrial Growth and Labour Markets

QuickSarkari.com | WhatsApp Channel | Telegram: t.me/quick_sarkari

Q.197

Read the passage below and answer the questions that follow.
Technological innovation has long been associated with economic growth, but the nature of this relationship is undergoing rapid transformation. In earlier decades, innovation primarily meant improving machinery, expanding industrial capacity, or increasing production efficiency. Today, however, the focus has shifted toward intangible drivers such as data, digital infrastructure, and algorithmic decision-making. Nations that once competed for industrial dominance now compete for intellectual property, computing power, and digital talent. This shift has raised important questions about inclusivity and access. While digital tools have democratized certain opportunities—allowing individuals to start businesses, create content, or learn new skills—large-scale inequalities persist. Many experts warn of a widening gap between countries with strong digital ecosystems and those struggling to build foundational infrastructure. Even within advanced economies, disparities appear in digital literacy, access to high-quality data, and the ability of small firms to adopt emerging technologies. Another issue concerns accountability. As algorithms play a greater role in financial decisions, public policy, healthcare diagnostics, and even criminal justice, debates around transparency and ethical standards have intensified. Critics argue that opaque systems may reinforce biases or operate without clear lines of responsibility. Proponents contend that algorithmic decision- making can outperform human judgment when designed and monitored carefully. Ultimately, the global economy is moving toward a model where

Identify the central theme of the passage.

(1) Industrial production remains the backbone of global growth.

(2) Algorithmic systems are replacing human workers rapidly.

(3) Digital tools have eliminated global inequalities.

(4) Technology now determines economic strength and social equity. ✔

QuickSarkari.com | WhatsApp Channel | Telegram: t.me/quick_sarkari

Q.198

Read the passage below and answer the questions that follow.
Technological innovation has long been associated with economic growth, but the nature of this relationship is undergoing rapid transformation. In earlier decades, innovation primarily meant improving machinery, expanding industrial capacity, or increasing production efficiency. Today, however, the focus has shifted toward intangible drivers such as data, digital infrastructure, and algorithmic decision-making. Nations that once competed for industrial dominance now compete for intellectual property, computing power, and digital talent. This shift has raised important questions about inclusivity and access. While digital tools have democratized certain opportunities—allowing individuals to start businesses, create content, or learn new skills—large-scale inequalities persist. Many experts warn of a widening gap between countries with strong digital ecosystems and those struggling to build foundational infrastructure. Even within advanced economies, disparities appear in digital literacy, access to high-quality data, and the ability of small firms to adopt emerging technologies. Another issue concerns accountability. As algorithms play a greater role in financial decisions, public policy, healthcare diagnostics, and even criminal justice, debates around transparency and ethical standards have intensified. Critics argue that opaque systems may reinforce biases or operate without clear lines of responsibility. Proponents contend that algorithmic decision- making can outperform human judgment when designed and monitored carefully. Ultimately, the global economy is moving toward a model where

Identify the fact given in the passage.

(1) Algorithmic decisions are always superior to human judgment.

(2) Experts warn of growing digital inequalities between nations. ✔

(3) Industrial innovation is more important than digital innovation today.

(4) All countries now enjoy equal access to digital tools.

QuickSarkari.com | WhatsApp Channel | Telegram: t.me/quick_sarkari

Q.199

Read the passage below and answer the questions that follow.
Technological innovation has long been associated with economic growth, but the nature of this relationship is undergoing rapid transformation. In earlier decades, innovation primarily meant improving machinery, expanding industrial capacity, or increasing production efficiency. Today, however, the focus has shifted toward intangible drivers such as data, digital infrastructure, and algorithmic decision-making. Nations that once competed for industrial dominance now compete for intellectual property, computing power, and digital talent. This shift has raised important questions about inclusivity and access. While digital tools have democratized certain opportunities—allowing individuals to start businesses, create content, or learn new skills—large-scale inequalities persist. Many experts warn of a widening gap between countries with strong digital ecosystems and those struggling to build foundational infrastructure. Even within advanced economies, disparities appear in digital literacy, access to high-quality data, and the ability of small firms to adopt emerging technologies. Another issue concerns accountability. As algorithms play a greater role in financial decisions, public policy, healthcare diagnostics, and even criminal justice, debates around transparency and ethical standards have intensified. Critics argue that opaque systems may reinforce biases or operate without clear lines of responsibility. Proponents contend that algorithmic decision- making can outperform human judgment when designed and monitored carefully. Ultimately, the global economy is moving toward a model where

Select the correct summary for the passage.

(1) The passage describes how digital innovation drives economic competitiveness while also creating concerns about inequality and accountability. ✔

(2) The passage claims that algorithmic systems have eliminated human error entirely.

(3) The passage argues that industrial innovation will soon overtake digital innovation.

(4) The passage explains why developing nations no longer need technological infrastructure.

QuickSarkari.com | WhatsApp Channel | Telegram: t.me/quick_sarkari

Q.200

Read the passage below and answer the questions that follow.
Technological innovation has long been associated with economic growth, but the nature of this relationship is undergoing rapid transformation. In earlier decades, innovation primarily meant improving machinery, expanding industrial capacity, or increasing production efficiency. Today, however, the focus has shifted toward intangible drivers such as data, digital infrastructure, and algorithmic decision-making. Nations that once competed for industrial dominance now compete for intellectual property, computing power, and digital talent. This shift has raised important questions about inclusivity and access. While digital tools have democratized certain opportunities—allowing individuals to start businesses, create content, or learn new skills—large-scale inequalities persist. Many experts warn of a widening gap between countries with strong digital ecosystems and those struggling to build foundational infrastructure. Even within advanced economies, disparities appear in digital literacy, access to high-quality data, and the ability of small firms to adopt emerging technologies. Another issue concerns accountability. As algorithms play a greater role in financial decisions, public policy, healthcare diagnostics, and even criminal justice, debates around transparency and ethical standards have intensified. Critics argue that opaque systems may reinforce biases or operate without clear lines of responsibility. Proponents contend that algorithmic decision- making can outperform human judgment when designed and monitored carefully. Ultimately, the global economy is moving toward a model where

Choose the antonym of the word “intensified” as used in the passage.

(1) Lessened ✔
(2) Heightened
(3) Expanded
(4) Increased "

Answer Key / उत्तर कुंजी

1 4	**2** 4	**3** 1	**4** 3	**5** 1	**6** 2	**7** 3	**8** 3	**9** 3	**10** 4	**11** 2	**12** 2	**13** 2	**14** 1	**15** 1
16 2	**17** 4	**18** 1	**19** 3	**20** 1	**21** 1	**22** 1	**23** 4	**24** 1	**25** 2	**26** 4	**27** 2	**28** 3	**29** 2	**30** 3
31 1	**32** 3	**33** 2	**34** 2	**35** 2	**36** 4	**37** 4	**38** 1	**39** 2	**40** 3	**41** 2	**42** 4	**43** 2	**44** 2	**45** 4
46 3	**47** 3	**48** 2	**49** 2	**50** 2	**51** 4	**52** 2	**53** 1	**54** 4	**55** 3	**56** 1	**57** 4	**58** 3	**59** 2	**60** 4
61 4	**62** 2	**63** 1	**64** 2	**65** 4	**66** 4	**67** 1	**68** 4	**69** 2	**70** 2	**71** 2	**72** 1	**73** 3	**74** 1	**75** 4
76 1	**77** 3	**78** 4	**79** 3	**80** 3	**81** 2	**82** 3	**83** 3	**84** 3	**85** 3	**86** 3	**87** 4	**88** 2	**89** 4	**90** 2
91 3	**92** 2	**93** 4	**94** 3	**95** 3	**96** 2	**97** 3	**98** 4	**99** 2	**100** 3	**101** 2	**102** 4	**103** 2	**104** 4	**105** 2
106 2	**107** 3	**108** 3	**109** 4	**110** 3	**111** 4	**112** 2	**113** 3	**114** 2	**115** 4	**116** 3	**117** 1	**118** 1	**119** 3	**120** 1
121 3	**122** 4	**123** 3	**124** 3	**125** 3	**126** 3	**127** 4	**128** 3	**129** 2	**130** 4	**131** 1	**132** 1	**133** 1	**134** 1	**135** 2
136 2	**137** 3	**138** 3	**139** 1	**140** 4	**141** 2	**142** 1	**143** 3	**144** 1	**145** 1	**146** 2	**147** 3	**148** 2	**149** 3	**150** 1

151 1	**152** 3	**153** 2	**154** 2	**155** 3	**156** 1	**157** 3	**158** 2	**159** 2	**160** 4	**161** 2	**162** 4	**163** 1	**164** 3	**165** 2
166 1	**167** 1	**168** 2	**169** 2	**170** 3	**171** 3	**172** 4	**173** 4	**174** 1	**175** 3	**176** 3	**177** 1	**178** 1	**179** 2	**180** 3
181 3	**182** 4	**183** 1	**184** 2	**185** 2	**186** 3	**187** 1	**188** 4	**189** 3	**190** 2	**191** 2	**192** 1	**193** 4	**194** 2	**195** 1
196 2	**197** 4	**198** 2	**199** 1	**200** 1										

Quick Sarkari

GOVT. OF NCT OF DELHI
Delhi Subordinate Services Selection Board
FC-18, Institutional Area, Karkardooma, Delhi – 110092.
www.dsssb.delhigovt.nic.in

Participant ID	[redacted]
Participant Name	[redacted]
Test Center Name	Aadarsh Pariksha Kendra CENTER B - Gate No 2 - Noida Sector 64
Test Date	28/02/2026
Test Time	1:00 PM - 3:00 PM
Subject	Naib Tehsildar

Section : **General Awareness**

Q.1 **मौर्य प्रशासन में गुप्तचरों के प्रमुख को, निम्नलिखित में से कौन-सी उपाधि दी जाती थी?**

Ans
✗ 1. संस्थाध्यक्ष (Sansthadhyaksha)
✗ 2. संधिविग्रहक (Sandhivigrahaka)
✗ 3. धम्म महामात्य (Dhamma Mahamatya)
✓ 4. महामात्यसर्प (Mahamatyapasarpa)

Question ID : **4410091204349**
Option 1 ID : **4410094750905**
Option 2 ID : **4410094750904**
Option 3 ID : **4410094750903**
Option 4 ID : **4410094750906**

Q.2 **जून 2025 में भारत में सैटेलाइट इंटरनेट सेवाएं प्रदान करने के लिए, किस प्रमुख सैटेलाइट इंटरनेट कंपनी को भारतीय सरकार से लाइसेंस प्राप्त हुआ?**

Ans
✗ 1. वनवेब (OneWeb)
✗ 2. ह्यूजेसनेट (HughesNet)
✗ 3. वियासैट (Viasat)
✓ 4. स्टारलिंक(Starlink)

Question ID : **4410091499706**
Option 1 ID : **4410095923718**
Option 2 ID : **4410095923721**
Option 3 ID : **4410095923719**
Option 4 ID : **4410095923720**

QuickSarkari.com | WhatsApp Channel | Telegram: t.me/quick_sarkari

Q.3 Which statutory body was set up in 1956 to regulate, coordinate, and provide financial support to higher education institutions in India?

Ans
✔ 1. University Grants Commission
✘ 2. National Education Commission
✘ 3. Indian Council of Social Science Research
✘ 4. Council of Scientific and Industrial Research

Question ID : **4410095108 03**
Option 1 ID : **4410091998371**
Option 2 ID : **4410091998370**
Option 3 ID : **4410091998373**
Option 4 ID : **4410091998372**

Q.4 निम्नलिखित में से किस अनुभवी भारतीय नर्तकी-अभिनेत्री का 15 अक्टूबर 2025 को निधन हो गया?

Ans
✘ 1. स्मृति बिस्वास
✘ 2. सुलोचना लाटकर
✔ 3. मधुमति
✘ 4. यामिनी कृष्णमूर्ति

Question ID : **4410091511636**
Option 1 ID : **4410095970619**
Option 2 ID : **4410095970620**
Option 3 ID : **4410095970618**
Option 4 ID : **4410095970617**

Q.5 2025 में विमोचित पुस्तक 'आई एम ए सोल्जर्स वाइफ (I Am a Soldier's Wife)' किसने लिखी?

Ans
✔ 1. गीतिका लिड्डर
✘ 2. नैना लाल किदवई
✘ 3. सुधा मूर्ति
✘ 4. रुक्मिणी राव

Question ID : **441009285929**
Option 1 ID : **4410091110811**
Option 2 ID : **4410091110810**
Option 3 ID : **4410091110812**
Option 4 ID : **4410091110813**

QuickSarkari.com | WhatsApp Channel | Telegram: t.me/quick_sarkari

Q.6 फतेहपुर सीकरी में बुलंद दरवाजा का निर्माण किसने करवाया था?

Ans
✗ 1. औरंगजेब
✓ 2. अकबर
✗ 3. जहाँगीर
✗ 4. शाहजहाँ

Question ID : **4410091489369**
Option 1 ID : **4410095883555**
Option 2 ID : **4410095883552**
Option 3 ID : **4410095883553**
Option 4 ID : **4410095883554**

Q.7 Which of the following is NOT an objective of the Aspire (Scheme for promotion of Innovation, Entrepreneurship and Agro- Industry) scheme?

Ans
✗ 1. Create new jobs, reduce unemployment and Promote entrepreneurship culture in India
✗ 2. Facilitate innovative business solution for un-met social needs
✓ 3. Guarantee universal and security-free credit access to all graduates in India
✗ 4. Promote innovation to further strengthen the competitiveness of MSME sector

Question ID : **441009610745**
Option 1 ID : **4410092398100**
Option 2 ID : **4410092398097**
Option 3 ID : **4410092398098**
Option 4 ID : **4410092398099**

Q.8 As per Article 279A of the Indian Constitution, the GST Council, which will be a joint forum of the Centre and the States, is chaired by the _____.

Ans
✗ 1. Prime Minister
✗ 2. RBI governor
✓ 3. Union Finance Minister
✗ 4. NITI Aayog CEO

Question ID : **441009340148**
Option 1 ID : **4410091326623**
Option 2 ID : **4410091326622**
Option 3 ID : **4410091326624**
Option 4 ID : **4410091326625**

QuickSarkari.com | WhatsApp Channel | Telegram: t.me/quick_sarkari

Q.9 किस अधिनियम ने सर्वप्रथम केंद्र में द्विसदनीय विधायिका की शुरुआत की?

Ans
✗ 1. भारतीय परिषद अधिनियम, 1892
✗ 2. भारतीय परिषद अधिनियम, 1909
✓ 3. भारत सरकार अधिनियम, 1919
✗ 4. भारत सरकार अधिनियम, 1935

Question ID : **4410091490002**
Option 1 ID : **4410095886036**
Option 2 ID : **4410095886033**
Option 3 ID : **4410095886034**
Option 4 ID : **4410095886035**

Q.10 15 अक्टूबर, 2025 को DRDO की सैन्य लड़ाकू पैराशूट प्रणाली का परीक्षण किस ऊंचाई पर किया गया था?

Ans
✗ 1. 20,000 फीट
✗ 2. 25,000 फीट
✗ 3. 40,000 फीट
✓ 4. 32,000 फीट

Question ID : **4410091496361**
Option 1 ID : **4410095910725**
Option 2 ID : **4410095910726**
Option 3 ID : **4410095910728**
Option 4 ID : **4410095910727**

Q.11 सितंबर 2025 में कौन-सा प्रमुख डिफेंस-स्पेस डॉक्ट्रिन (defence-space doctrine) जारी किया गया था?

Ans
✗ 1. नेशनल सैटेलाइट डॉक्ट्रिन (National Satellite Doctrine)
✓ 2. जॉइंट मिलिट्री स्पेस डॉक्ट्रिन (Joint Military Space Doctrine)
✗ 3. नेवल स्पेस डॉक्ट्रिन (Naval Space Doctrine)
✗ 4. स्पेस-साइबर डिफेंस डॉक्ट्रिन (Space-Cyber Defence Doctrine)

Question ID : **4410091504345**
Option 1 ID : **4410095941799**
Option 2 ID : **4410095941798**
Option 3 ID : **4410095941801**
Option 4 ID : **4410095941800**

QuickSarkari.com | WhatsApp Channel | Telegram: t.me/quick_sarkari

Q.12 सितंबर 2025 में, भारत का प्रथम संपूर्णतः स्वदेशी 4G नेटवर्क किस ऑपरेटर ने लॉन्च किया?

Ans
✗ 1. वोडाफोन आइडिया
✓ 2. BSNL (भारत संचार निगम लिमिटेड)
✗ 3. रिलायंस जियो
✗ 4. भारती एयरटेल

Question ID : **4410091499730**
Option 1 ID : **4410095923813**
Option 2 ID : **4410095923812**
Option 3 ID : **4410095923810**
Option 4 ID : **4410095923811**

Q.13 भारत में राज्य के स्वामित्व वाले उद्यमों में रोजगार पर निजीकरण का क्या प्रभाव पड़ा?

Ans
✗ 1. कर्मचारियों के लिए नौकरी की सुरक्षा में वृद्धि हुई
✓ 2. पुनर्गठन और छंटनी के कारण नौकरियों में कटौती हुई
✗ 3. सार्वजनिक क्षेत्र के विस्तार को प्रोत्साहित किया गया
✗ 4. रोजगार के अवसरों में उल्लेखनीय वृद्धि हुई

Question ID : **441009627317**
Option 1 ID : **4410092463422**
Option 2 ID : **4410092463421**
Option 3 ID : **4410092463423**
Option 4 ID : **4410092463420**

Q.14 जुलाई 2025 में, DRDO की किस मिसाइल ने चरण-1 सत्यापन के लिए लगातार दो परीक्षण उड़ानें सफलतापूर्वक पूरी कीं?

Ans
✓ 1. प्रलय
✗ 2. अग्नि-प्राइम
✗ 3. शौर्य
✗ 4. आकाश-NG

Question ID : **4410091496342**
Option 1 ID : **4410095910649**
Option 2 ID : **4410095910652**
Option 3 ID : **4410095910650**
Option 4 ID : **4410095910651**

QuickSarkari.com | WhatsApp Channel | Telegram: t.me/quick_sarkari

Q.15 1498 में निम्नलिखित में से कौन-सा पुर्तगाली खोजकर्ता कालीकट पहुंचा था?

Ans
✔ 1. वास्को डा गामा (Vasco da Gama)
✘ 2. बार्थोलोम्यू डियाज़ (Bartholomew Diaz)
✘ 3. अफोंसो डी अल्बुकर्क (Alfonso de Albuquerque)
✘ 4. फ्रांसिस ड्रेक (Francis Drake)

Question ID : **4410091489393**
Option 1 ID : **4410095883622**
Option 2 ID : **4410095883621**
Option 3 ID : **4410095883623**
Option 4 ID : **4410095883624**

Q.16 भारत के 2026 गणतंत्र दिवस सम्मानों में कर्नल सोफिया कुरैशी को किस वीरता पुरस्कार के लिए नामित किया गया था?

Ans
✘ 1. शौर्य चक्र (Shaurya Chakra)
✔ 2. विशिष्ट सेवा मेडल (Vishisht Seva Medal)
✘ 3. अशोक चक्र (Ashoka Chakra)
✘ 4. सेना मेडल (Sena Medal)

Question ID : **4410091492622**
Option 1 ID : **4410095896190**
Option 2 ID : **4410095896191**
Option 3 ID : **4410095896189**
Option 4 ID : **4410095896192**

Q.17 भारतीय नौसेना के नेतृत्व में भारतीय थल सेना और भारतीय वायु सेना के साथ संयुक्त रूप से नवंबर 2025 की शुरूआत में आयोजित, त्रि-सेवा अभ्यास का नाम क्या था?

Ans
✘ 1. मालाबार (Malabar)
✘ 2. तरंग शक्ति (Tarang Shakti)
✘ 3. ट्रोपेक्स (TROPEX)
✔ 4. त्रिशूल (Trishul)

Question ID : **4410091496289**
Option 1 ID : **4410095910440**
Option 2 ID : **4410095910439**
Option 3 ID : **4410095910437**
Option 4 ID : **4410095910438**

QuickSarkari.com | WhatsApp Channel | Telegram: t.me/quick_sarkari

Q.18 गांधी जयंती 2025, महात्मा गांधी के जन्म के कितने वर्ष पूरे होने का प्रतीक है?

Ans
✔ 1. 156 वर्ष
✘ 2. 150 वर्ष
✘ 3. 157 वर्ष
✘ 4. 155 वर्ष

Question ID : **4410091492736**
Option 1 ID : **4410095896627**
Option 2 ID : **4410095896625**
Option 3 ID : **4410095896628**
Option 4 ID : **4410095896626**

Q.19 ओडिशा में वर्ष 1817 के पाइका विद्रोह का नेतृत्व किसने किया था?

Ans
✘ 1. कुंवर सिंह
✘ 2. रानी लक्ष्मीबाई
✔ 3. बख्शी जगबंधु
✘ 4. राम सिंह कूका

Question ID : **4410091489484**
Option 1 ID : **4410095883991**
Option 2 ID : **4410095883990**
Option 3 ID : **4410095883989**
Option 4 ID : **4410095883992**

Q.20 International Literacy Day is celebrated on 8 September. What was its theme in 2025?

Ans
✔ 1. Promoting Literacy in the Digital Era
✘ 2. Literacy for Life
✘ 3. Transforming Learning Spaces
✘ 4. Literacy and Sustainable Development

Question ID : **4410091496038**
Option 1 ID : **4410095909452**
Option 2 ID : **4410095909449**
Option 3 ID : **4410095909450**
Option 4 ID : **4410095909451**

Section : **General Awareness1**

QuickSarkari.com | WhatsApp Channel | Telegram: t.me/quick_sarkari

Q.1 2011 की जनगणना के अनुसार, भारत के किस केंद्र शासित प्रदेश का बाल लिंग अनुपात सबसे अधिक है?

Ans
✔ 1. अंडमान और निकोबार द्वीप समूह
✘ 2. लक्षद्वीप
✘ 3. दमन और दीव
✘ 4. चंडीगढ़

Question ID : **441009637420**
Option 1 ID : **4410092503826**
Option 2 ID : **4410092503825**
Option 3 ID : **4410092503824**
Option 4 ID : **4410092503823**

Q.2 मौर्य काल में, चट्टानों को काटकर बनाई गई गुफा वास्तुकला की _____ योजना थी, जिसमें एक बरामदा, हॉल और हॉल की दीवारों के चारों ओर कक्ष होते थे।

Ans
✔ 1. विहार
✘ 2. स्तूप
✘ 3. चैत्य
✘ 4. स्तंभ

Question ID : **441009609151**
Option 1 ID : **4410092391722**
Option 2 ID : **4410092391724**
Option 3 ID : **4410092391721**
Option 4 ID : **4410092391723**

Q.3 चिल्का झील भारत के किस राज्य में स्थित है?

Ans
✘ 1. केरल
✘ 2. आंध्र प्रदेश
✘ 3. तमिलनाडु
✔ 4. ओडिशा

Question ID : **4410091491297**
Option 1 ID : **4410095890974**
Option 2 ID : **4410095890977**
Option 3 ID : **4410095890976**
Option 4 ID : **4410095890975**

QuickSarkari.com | WhatsApp Channel | Telegram: t.me/quick_sarkari

Q.4 हाथी गुफा (हाथीगुम्फा) निम्नलिखित में से किसका हिस्सा है?

Ans
✔ 1. उदयगिरी
✘ 2. ललितागिरी
✘ 3. रत्नागिरी
✘ 4. धौलीगिरी

Question ID : **4410096095 16**
Option 1 ID : **4410092393182**
Option 2 ID : **4410092393183**
Option 3 ID : **4410092393184**
Option 4 ID : **4410092393181**

Q.5 भारत में मैंग्रोव वन मुख्यतः किस क्षेत्र में पाए जाते हैं?

Ans
✘ 1. पश्चिमी घाट
✔ 2. गंगा-ब्रह्मपुत्र डेल्टा
✘ 3. थार रेगिस्तान
✘ 4. हिमालय

Question ID : **4410091490188**
Option 1 ID : **4410095886761**
Option 2 ID : **4410095886763**
Option 3 ID : **4410095886762**
Option 4 ID : **4410095886764**

Q.6 A Constitutional Amendment altering Article 54 or Article 55 requires which additional constitutional step?

Ans
✘ 1. Consultation with the Inter-State Council before introduction
✘ 2. Approval by the Supreme Court under its advisory jurisdiction
✘ 3. Certification by the Election Commission after passage
✔ 4. Ratification by at least one-half of the State Legislatures

Question ID : **4410091503650**
Option 1 ID : **4410095938811**
Option 2 ID : **4410095938809**
Option 3 ID : **4410095938810**
Option 4 ID : **4410095938808**

QuickSarkari

Q.7 निम्नलिखित में से कौन-सा, भू-पृष्ठ पर गुरुत्वीय त्वरण का लगभग मान है?

Ans
✗ 1. 9.7 m/s²
✓ 2. 9.8 m/s²
✗ 3. 7.8 m/s²
✗ 4. 8.9 m/s²

Question ID : **441009616602**
Option 1 ID : **4410092420578**
Option 2 ID : **4410092420577**
Option 3 ID : **4410092420579**
Option 4 ID : **4410092420580**

Q.8 During which century did Indo-Saracenic architecture gain prominence in colonial India?

Ans
✗ 1. 20th century
✗ 2. 18th century
✓ 3. 19th century
✗ 4. 17th century

Question ID : **441009605645**
Option 1 ID : **4410092377700**
Option 2 ID : **4410092377698**
Option 3 ID : **4410092377697**
Option 4 ID : **4410092377699**

Q.9 As per Article 143, if it appears to the President that a question of law has arisen, the President may obtain the opinion from the:

Ans
✗ 1. Prime Minister
✓ 2. Supreme Court
✗ 3. Attorney General
✗ 4. Advocate General

Question ID : **4410091118971**
Option 1 ID : **4410094411774**
Option 2 ID : **4410094411777**
Option 3 ID : **4410094411775**
Option 4 ID : **4410094411776**

QuickSarkari.com | WhatsApp Channel | Telegram: t.me/quick_sarkari

Q.10 2011 की जनगणना के अनुसार भारत में कितने सांविधिक नगर (statutory town) हैं?

Ans
✗ 1. 5578
✗ 2. 6754
✓ 3. 4041
✗ 4. 7342

Question ID : **441009637674**
Option 1 ID : **4410092504841**
Option 2 ID : **4410092504839**
Option 3 ID : **4410092504840**
Option 4 ID : **4410092504842**

Q.11 The Administrative Tribunals were established under which Part of the Indian Constitution?

Ans
✓ 1. Part XIV-A
✗ 2. Part XV
✗ 3. Part X
✗ 4. Part XII

Question ID : **4410091493674**
Option 1 ID : **4410095900313**
Option 2 ID : **4410095900314**
Option 3 ID : **4410095900312**
Option 4 ID : **4410095900315**

Q.12 निम्नलिखित में से कौन-सा, भारत में प्रारंभिक जनजातीय और किसान विद्रोहों का एक प्रमुख कारण था?

Ans
✗ 1. औद्योगीकरण नीतियाँ
✗ 2. व्यापार प्रथाएँ
✓ 3. अत्यधिक भूमि राजस्व की मांग
✗ 4. पश्चिमी शिक्षा

Question ID : **4410091489512**
Option 1 ID : **4410095884090**
Option 2 ID : **4410095884091**
Option 3 ID : **4410095884089**
Option 4 ID : **4410095884092**

QuickSarkari.com | WhatsApp Channel | Telegram: t.me/quick_sarkari

Q.13 अक्टूबर 2025 तक प्राप्त जानकारी के अनुसार, निम्नलिखित में से कौन भारत का अटॉर्नी जनरल था?

Ans
✗ 1. के. एम. नटराज
✓ 2. आर. वेंकटरमणी
✗ 3. विक्रमजीत बनर्जी
✗ 4. तुषार मेहता

Question ID : **441009502503**
Option 1 ID : **4410091965182**
Option 2 ID : **4410091965185**
Option 3 ID : **4410091965183**
Option 4 ID : **4410091965184**

Q.14 During which months does the Inter-Tropical Convergence Zone (ITCZ) shift northwards over the Ganga plain?

Ans
✗ 1. December–January
✓ 2. June–July
✗ 3. September–October
✗ 4. April–May

Question ID : **4410091490209**
Option 1 ID : **4410095886846**
Option 2 ID : **4410095886845**
Option 3 ID : **4410095886848**
Option 4 ID : **4410095886847**

Q.15 तिब्बत में ब्रह्मपुत्र नदी को _____ के नाम से जाना जाता है।

Ans
✗ 1. लुइट (Luit)
✓ 2. त्संगपो (Tsangpo)
✗ 3. जमुना (Jamuna)
✗ 4. दिहांग (Dihang)

Question ID : **4410091491295**
Option 1 ID : **4410095890969**
Option 2 ID : **4410095890967**
Option 3 ID : **4410095890968**
Option 4 ID : **4410095890966**

QuickSarkari.com | WhatsApp Channel | Telegram: t.me/quick_sarkari

Q.16 भारतीय संविधान का कौन-सा अनुच्छेद राज्य को न्याय, सामाजिक, आर्थिक और राजनीतिक आधार पर सामाजिक व्यवस्था को सुरक्षित और संरक्षित करके लोक के कल्याण को बढ़ावा देने का निर्देश देता है?

Ans
✗ 1. अनुच्छेद 39
✗ 2. अनुच्छेद 37
✗ 3. अनुच्छेद 36
✓ 4. अनुच्छेद 38

Question ID : **4410091503558**
Option 1 ID : **4410095938431**
Option 2 ID : **4410095938429**
Option 3 ID : **4410095938428**
Option 4 ID : **4410095938430**

Q.17 The alternative form of gene is known as _____.

Ans
✗ 1. central dogma
✗ 2. chromosome
✗ 3. nucleotide
✓ 4. alleles

Question ID : **44100985276**
Option 1 ID : **441009338814**
Option 2 ID : **441009338813**
Option 3 ID : **441009338815**
Option 4 ID : **441009338812**

Q.18 तरल मोज़ेक मॉडल का प्रस्ताव _____ द्वारा दिया गया था।

Ans
✓ 1. सिंगर और निकोलसन (Singer and Nicolson)
✗ 2. रॉबर्टसन (Robertson)
✗ 3. श्लेडेन और श्वान (Schleiden and Schwann)
✗ 4. डेनिएली और डेवसन (Danielli and Davson)

Question ID : **441009616381**
Option 1 ID : **4410092419695**
Option 2 ID : **4410092419694**
Option 3 ID : **4410092419696**
Option 4 ID : **4410092419693**

QuickSarkari.com | WhatsApp Channel | Telegram: t.me/quick_sarkari

Q.19 As per the Indian Constitution, the provisions of the Directive Principles of State Policy are ____.

Ans
✗ 1. Enforceable by the Parliament
✓ 2. Not enforceable by any court
✗ 3. Enforceable by courts
✗ 4. Enforceable by the President

Question ID : **4410091503574**
Option 1 ID : **4410095938507**
Option 2 ID : **4410095938505**
Option 3 ID : **4410095938504**
Option 4 ID : **4410095938506**

Q.20 The term cooperative federalism in the Indian context refers to:

Ans
✗ 1. States assisting the Centre in implementing international treaties
✗ 2. Competition between States for funds
✓ 3. Centre and States working jointly on national development goals
✗ 4. Separation of powers between the Centre and States

Question ID : **4410091493517**
Option 1 ID : **4410095899693**
Option 2 ID : **4410095899695**
Option 3 ID : **4410095899694**
Option 4 ID : **4410095899692**

Section : **General intelligence and Reasoning Ability**

Q.1 Refer to the following letter, number, symbol series and answer the question that follows. All numbers are single digit numbers only. Counting to be done from left to right only.

(Left) L = T \ A M 8 V G & 9 % 7 ^ 7 R 3 P 9 W \ S J 4 (Right)

How many such letters are there, each of which is immediately preceded by a number and also immediately followed by a symbol?

Ans
✗ 1. More than three
✓ 2. One
✗ 3. None
✗ 4. Two

Question ID : **441009785219**
Option 1 ID : **4410093094882**
Option 2 ID : **4410093094880**
Option 3 ID : **4410093094879**
Option 4 ID : **4410093094881**

Q.2 उत्तर दिशा की ओर अभिमुख बैठे 163 विद्यार्थियों की एक पंक्ति में, मिस्टर लाल दाहिने सिरे से 55वें स्थान पर बैठे हैं। यदि मिस्टर सैम, मिस्टर लाल के बाएं ओर 16वें स्थान पर बैठे हैं, तो पंक्ति के बाएं सिरे से मिस्टर सैम कौन-से स्थान पर बैठे हैं?

Ans
✗ 1. 99वें
✗ 2. 95वें
✗ 3. 97वें
✓ 4. 93वें

Question ID : **4410091483662**
Option 1 ID : **4410095861528**
Option 2 ID : **4410095861526**
Option 3 ID : **4410095861527**
Option 4 ID : **4410095861525**

Q.3 निम्नलिखित संख्या और प्रतीक श्रृंखला का संदर्भ लीजिए और उसके बाद दिए गए प्रश्न का उत्तर दीजिए। गिनती केवल बाएं से दाएं की जानी है। सभी संख्याएं एकल-अंकीय हैं।

(बाएं) ? 5 # > @ 5 + 5 5 9 2 % 7 4 8 $ 7 < $ & > (दाएं)

ऐसे कितने प्रतीक हैं, जिनमें से प्रत्येक के ठीक पहले एक संख्या है और ठीक बाद भी एक संख्या है?

Ans
✗ 1. दो
✓ 2. तीन
✗ 3. एक भी नहीं
✗ 4. एक

Question ID : **441009794920**
Option 1 ID : **4410093133681**
Option 2 ID : **4410093133682**
Option 3 ID : **4410093133679**
Option 4 ID : **4410093133680**

Q.4 F, R की माता है। R, X की बहन है। A, G का पिता है। G, X का पुत्र है। F का G से क्या संबंध है?

Ans
✗ 1. माता
✓ 2. माता की माता
✗ 3. माता की बहन
✗ 4. बहन

Question ID : **4410091528211**
Option 1 ID : **4410096036039**
Option 2 ID : **4410096036037**
Option 3 ID : **4410096036038**
Option 4 ID : **4410096036040**

QuickSarkari.com | WhatsApp Channel | Telegram: t.me/quick_sarkari

Q.5 सात व्यक्ति, D, E, F, G, U, V और W, उत्तर की ओर अभिमुख होकर एक पंक्ति में बैठे हैं। G, U के दाएं से दूसरे स्थान पर बैठा है। G और D के बीच केवल दो व्यक्ति बैठे हैं। U बाएं केवल दो व्यक्ति बैठे हैं। U और E के बीच केवल तीन व्यक्ति बैठे हैं। V, W के दाएं किसी स्थान पर बैठा है और F के बाएं किसी स्थान पर बैठा है।
V के दाएं कितने व्यक्ति बैठे हैं?

Ans
✗ 1. चार
✗ 2. एक
✗ 3. दो
✓ 4. तीन

Question ID : **4410091482842**
Option 1 ID : **4410095858348**
Option 2 ID : **4410095858345**
Option 3 ID : **4410095858346**
Option 4 ID : **4410095858347**

Q.6 सात व्यक्ति, D, E, F, G, U, V और W, एक गोल मेज के परितः केंद्र की ओर मुख करके बैठे हैं। V के दाईं ओर से गिनने पर U और V के बीच केवल एक व्यक्ति बैठा है। D के दाईं ओर से गिनने पर D और V के बीच केवल एक व्यक्ति बैठा है। U के दाईं ओर से गिनने पर U और F के बीच केवल एक व्यक्ति बैठा है। F के दाईं ओर से गिनने पर F और E के बीच केवल एक व्यक्ति बैठा है। E के बाईं ओर से गिनने पर W और E के बीच केवल दो व्यक्ति बैठे हैं।
G के दाईं ओर से गिनने पर G और F के बीच कितने व्यक्ति बैठे हैं?

Ans
✗ 1. एक
✗ 2. चार
✓ 3. दो
✗ 4. तीन

Question ID : **4410091482814**
Option 1 ID : **4410095858233**
Option 2 ID : **4410095858236**
Option 3 ID : **4410095858234**
Option 4 ID : **4410095858235**

QuickSarkari.com | WhatsApp Channel | Telegram: t.me/quick_sarkari

Q.7 दी गई संख्या श्रृंखला का संदर्भ लीजिए और नीचे दिए गए प्रश्न का उत्तर दीजिए। सभी संख्याएँ केवल एकल-अंकीय संख्याएँ हैं। गिनती केवल बाएँ से दाएँ की जानी है।

(बाएँ) 1 1 7 2 7 1 1 5 2 6 1 9 1 8 5 9 9 5 8 4 7 6 9 (दाएँ)

ऐसे कितने विषम अंक हैं, जिनमें से प्रत्येक के ठीक पहले एक सम अंक आता है तथा प्रत्येक के ठीक बाद में एक विषम अंक आता है?

Ans
✗ 1. एक भी नहीं
✗ 2. दो
✓ 3. तीन
✗ 4. एक

Question ID : **4410097750 86**
Option 1 ID : **4410093054347**
Option 2 ID : **4410093054349**
Option 3 ID : **4410093054350**
Option 4 ID : **4410093054348**

Q.8 सात बक्से D, E, F, G, U, V और W को एक के ऊपर एक रखा गया है, लेकिन जरूरी नहीं है कि इसी क्रम में रखे गए हों। केवल W को F के ऊपर रखा गया है। D के ऊपर केवल दो बक्से रखे गए हैं। D को V के ठीक ऊपर रखा गया है। G को E के ठीक ऊपर रखा गया है। G को नीचे से तीसरे स्थान पर नहीं रखा गया है।
U और W के बीच कितने बक्से रखे गए हैं?

Ans
✗ 1. चार
✓ 2. तीन
✗ 3. एक
✗ 4. दो

Question ID : **4410091482875**
Option 1 ID : **4410095858476**
Option 2 ID : **4410095858475**
Option 3 ID : **4410095858473**
Option 4 ID : **4410095858474**

QuickSarkari

Q.9 निम्नलिखित अक्षर श्रृंखला का संदर्भ लें और दिए गए प्रश्न का उत्तर दें। गिनती केवल बाएं से दाएं की जानी है।

(बाएं) P E Q E V K C N U X U B K R I T Z W J (दाएं)

ऐसे कितने व्यंजन हैं, जिनमें से प्रत्येक के ठीक पहले एक व्यंजन और ठीक बाद में एक स्वर है?

Ans
✗ 1. चार
✓ 2. दो
✗ 3. एक
✗ 4. तीन

Question ID : **441009781965**
Option 1 ID : **4410093081866**
Option 2 ID : **4410093081864**
Option 3 ID : **4410093081863**
Option 4 ID : **4410093081865**

Q.10 निम्नलिखित अक्षर श्रृंखला का संदर्भ लीजिए और उसके बाद दिए गए प्रश्न का उत्तर दीजिए। गिनती केवल बाएं से दाएं की जानी है।

(बाएं) S P K I J E C I O P U N U B H J R T F C E S (दाएं)

ऐसे कितने व्यंजन हैं, जिनमें से प्रत्येक के ठीक पहले एक स्वर है और ठीक बाद भी एक स्वर है?

Ans
✗ 1. एक भी नहीं
✓ 2. दो से अधिक
✗ 3. एक
✗ 4. दो

Question ID : **441009797512**
Option 1 ID : **4410093144047**
Option 2 ID : **4410093144050**
Option 3 ID : **4410093144048**
Option 4 ID : **4410093144049**

Q.11 अंग्रेजी वर्णमाला क्रम के आधार पर एक निश्चित तर्क के अनुसार, KFJL का संबंध RMQS से है। इसी प्रकार, IDHJ का संबंध PKOQ से है। समान तर्क का अनुसरण करते हुए GBFH का संबंध निम्नलिखित में से किससे है?

Ans
✗ 1. INOM
✗ 2. NIOM
✗ 3. INMO
✓ 4. NIMO

Question ID : **441009785947**
Option 1 ID : **4410093097794**
Option 2 ID : **4410093097792**
Option 3 ID : **4410093097793**
Option 4 ID : **4410093097791**

QuickSarkari.com | WhatsApp Channel | Telegram: t.me/quick_sarkari

Q.12 निम्नलिखित अक्षर श्रृंखला का संदर्भ लीजिए और उसके बाद दिए गए प्रश्न का उत्तर दीजिए। गिनती केवल बाएं से दाएं की जानी है।

(बाएं) K B R M A E S Q C X Z H W P I D F O Y G U (दाएं)

ऐसे कितने व्यंजन हैं, जिनमें से प्रत्येक के ठीक पहले एक स्वर है और ठीक बाद भी एक स्वर है?

Ans
✗ 1. तीन
✓ 2. एक भी नहीं
✗ 3. दो
✗ 4. एक

Question ID : **4410097972 31**
Option 1 ID : **4410093142926**
Option 2 ID : **4410093142923**
Option 3 ID : **4410093142925**
Option 4 ID : **4410093142924**

Q.13 F, R की माता है। R, X की बहन है। A, G का पिता है। G, X का पति है। G का F से क्या संबंध है?

Ans
✓ 1. पुत्री का पति
✗ 2. भाई
✗ 3. पुत्री का पुत्र
✗ 4. पिता

Question ID : **4410091528209**
Option 1 ID : **4410096036029**
Option 2 ID : **4410096036032**
Option 3 ID : **4410096036030**
Option 4 ID : **4410096036031**

Q.14 एक निश्चित कूट भाषा में, 'BOAR' को '2764' के रूप में कूटबद्ध किया जाता है और 'ROAD' को '2749' के रूप में कूटबद्ध किया जाता है। दी गई कूट भाषा में 'D' का कूट क्या होगा?

Ans
✗ 1. 4
✗ 2. 2
✗ 3. 7
✓ 4. 9

Question ID : **4410097964 88**
Option 1 ID : **4410093139954**
Option 2 ID : **4410093139952**
Option 3 ID : **4410093139953**
Option 4 ID : **4410093139951**

QuickSarkari.com | WhatsApp Channel | Telegram: t.me/quick_sarkari

Q.15 निम्नलिखित अक्षर, संख्या और प्रतीक श्रृंखला का संदर्भ लीजिए और उसके बाद दिए गए प्रश्न का उत्तर दीजिए। सभी संख्याएं केवल एकल-अंकीय हैं। गिनती केवल बाएं से दाएं की जानी है।

(बाएं) B 7 @ F B # X $ & 6 * G T % 8 F C F T = T F X M (दाएं)

ऐसे कितने प्रतीक हैं, जिनमें से प्रत्येक के ठीक पहले एक संख्या है और ठीक बाद एक अक्षर है?

Ans
✗ 1. एक भी नहीं
✗ 2. एक
✓ 3. दो
✗ 4. तीन

Question ID : **441009794934**
Option 1 ID : **4410093133735**
Option 2 ID : **4410093133736**
Option 3 ID : **4410093133737**
Option 4 ID : **4410093133738**

Q.16 किसी निश्चित कूट भाषा में, 'EARN' को '5129' के रूप में कूटबद्ध किया जाता है और 'NEAL' को '9218' के रूप में कूटबद्ध किया जाता है। दी गई कूट भाषा में 'L' का कूट क्या होगा?

Ans
✓ 1. 8
✗ 2. 1
✗ 3. 9
✗ 4. 2

Question ID : **4410091483671**
Option 1 ID : **4410095861564**
Option 2 ID : **4410095861563**
Option 3 ID : **4410095861561**
Option 4 ID : **4410095861562**

Q.17 किसी निश्चित कूट भाषा में, 'ROAD' को '1864' के रूप में कूटबद्ध किया जाता है और 'DRAW' को '1748' के रूप में कूटबद्ध किया जाता है। उस कूट भाषा में 'W' का कूट क्या होगा?

Ans
✗ 1. 4
✗ 2. 8
✗ 3. 1
✓ 4. 7

Question ID : **441009796492**
Option 1 ID : **4410093139969**
Option 2 ID : **4410093139970**
Option 3 ID : **4410093139968**
Option 4 ID : **4410093139967**

QuickSarkari.com | WhatsApp Channel | Telegram: t.me/quick_sarkari

Q.18 एक निश्चित तरीके से PX 15 का संबंध ST -1 से है। उसी प्रकार, UY 8 का संबंध XU -8 से है। उसी तर्क का अनुसरण करते हुए, GO 11 का संबंध निम्नलिखित में से किससे है?

Ans
✗ 1. YR -8
✗ 2. KJ -6
✓ 3. JK -5
✗ 4. TY -4

Question ID : **4410091785732**
Option 1 ID : **4410093096934**
Option 2 ID : **4410093096932**
Option 3 ID : **4410093096931**
Option 4 ID : **4410093096933**

Q.19 सुरभि अपनी कक्षा में शीर्ष से 9वें और नीचे से 28वें स्थान पर है। कक्षा में कुल कितने विद्यार्थी हैं?

Ans
✗ 1. 24
✓ 2. 36
✗ 3. 26
✗ 4. 37

Question ID : **4410091487786**
Option 1 ID : **4410095877268**
Option 2 ID : **4410095877270**
Option 3 ID : **4410095877269**
Option 4 ID : **4410095877267**

Q.20 छह डिब्बे A, B, C, D, E और F एक के ऊपर एक रखे गए हैं, लेकिन जरूरी नहीं कि इसी क्रम में रखे गए हों। C और F के ठीक बीच में E रखा गया है। C, B के ठीक ऊपर रखा है। A और E के बीच में केवल दो डिब्बे रखे गए हैं। E, A के नीचे किसी स्थान पर रखा गया है। F के ठीक ऊपर कौन-सा डिब्बा रखा गया है?

Ans
✗ 1. E
✗ 2. A
✗ 3. B
✓ 4. D

Question ID : **4410091487764**
Option 1 ID : **4410095877179**
Option 2 ID : **4410095877181**
Option 3 ID : **4410095877182**
Option 4 ID : **4410095877180**

Section : **General intelligence and Reasoning Ability1**

QuickSarkari.com | WhatsApp Channel | Telegram: t.me/quick_sarkari

Q.1 संख्या 8921674 के प्रत्येक अंक को बाएं से दाएं आरोही क्रम में व्यवस्थित किया जाता है। इस प्रकार बनी नई संख्या में बाएं से दूसरे और दाएं से दूसरे अंक का योग कितना होगा?

Ans
✗ 1. 9
✗ 2. 8
✗ 3. 11
✓ 4. 10

Question ID : **441009553240**
Option 1 ID : **4410092168275**
Option 2 ID : **4410092168274**
Option 3 ID : **4410092168277**
Option 4 ID : **4410092168276**

Q.2 अंग्रेजी वर्णानुक्रम के आधार पर, निम्नलिखित चार अक्षर-समूह युग्मों में से तीन किसी निश्चित तरीके से एकसमान हैं और इस प्रकार एक ग्रुप बनाते हैं। कौन-सा अक्षर-समूह युग्म, उस समूह से संबंधित नहीं है?
(नोट: असंगत अक्षर-समूह युग्म, व्यंजनों/स्वरों की संख्या या उनकी स्थिति पर आधारित नहीं है।)

Ans
✗ 1. AN – YT
✓ 2. XQ – UW
✗ 3. WZ – UF
✗ 4. SL – QR

Question ID : **441009779427**
Option 1 ID : **4410093071711**
Option 2 ID : **4410093071714**
Option 3 ID : **4410093071712**
Option 4 ID : **4410093071713**

Q.3 उस सेट का चयन कीजिए, जिसमें संख्याएं उसी प्रकार से संबंधित हैं जिस प्रकार निम्नलिखित सेटों की संख्याएं संबंधित हैं।
(नोट: संख्याओं को उनके घटक अंकों में तोड़े बिना संक्रियाएं केवल पूर्ण संख्याओं पर की जानी चाहिए। उदाहरण के लिए, 13 लीजिए - 13 पर संक्रियाएं, जैसे 13 में जोड़ना/घटाना/गुणा करना, की जा सकती हैं। 13 को 1 और 3 में तोड़ना और फिर 1 और 3 पर गणितीय संक्रियाएं करने की अनुमति नहीं है।)

(71, 47, 143)
(83, 22, 130)

Ans
✓ 1. (36, 23, 112)
✗ 2. (42, 14, 79)
✗ 3. (54, 41, 165)
✗ 4. (95, 31, 151)

Question ID : **441009553208**
Option 1 ID : **4410092168146**
Option 2 ID : **4410092168147**
Option 3 ID : **4410092168148**
Option 4 ID : **4410092168149**

Q.4 अंग्रेजी वर्णानुक्रम पर आधारित, निम्नलिखित चार अक्षर-समूह युग्मों में से तीन किसी निश्चित तरीके से एक समान हैं तथा इस प्रकार एक ग्रुप का निर्माण करते हैं। निम्नलिखित में से कौन-सा अक्षर-समूह युग्म, उस ग्रुप से संबंधित नहीं है?
(नोट: असंगत अक्षर-समूह युग्म, व्यंजनों/स्वरों की संख्या या उनकी स्थिति पर आधारित नहीं है।)

Ans
✗ 1. DH-KC
✓ 2. JN-QH
✗ 3. GK-NF
✗ 4. MQ-TL

Question ID : **441009785874**
Option 1 ID : **4410093097502**
Option 2 ID : **4410093097499**
Option 3 ID : **4410093097501**
Option 4 ID : **4410093097500**

Q.5 उस समुच्चय का चयन कीजिए जिसमें संख्याएँ उसी प्रकार से संबंधित हैं जिस प्रकार निम्नलिखित समुच्चयों की संख्याएँ संबंधित हैं।

(नोट: संख्याओं को उनके घटक अंकों में तोड़े बिना, संक्रियाएँ पूर्ण संख्याओं पर की जानी चाहिए। उदाहरण के लिए 13 को लीजिए, 13 पर संक्रियाएँ जैसे कि 13 में जोड़ना/घटाना/गुणा करना आदि की जा सकती हैं। 13 को 1 और 3 में तोड़ना तथा फिर 1 और 3 पर गणितीय संक्रियाएँ करने की अनुमति नहीं है।)

(9, 162, 9)
(7, 98, 7)

Ans
✗ 1. (8, 140, 10)
✗ 2. (6, 72, 4)
✗ 3. (15, 50, 5)
✓ 4. (10, 200, 10)

Question ID : **441009533156**
Option 1 ID : **4410092088028**
Option 2 ID : **4410092088029**
Option 3 ID : **4410092088031**
Option 4 ID : **4410092088030**

Q.6 दी गई श्रृंखला में प्रश्न-चिह्न (?) के स्थान पर क्या आना चाहिए?

85 94 105 118 133 ?

Ans
✗ 1. 149
✗ 2. 152
✗ 3. 151
✓ 4. 150

Question ID : **4410091522303**
Option 1 ID : **4410096012313**
Option 2 ID : **4410096012315**
Option 3 ID : **4410096012314**
Option 4 ID : **4410096012312**

QuickSarkari.com | WhatsApp Channel | Telegram: t.me/quick_sarkari

Q.7 नीचे संख्याओं के दो समूह दिए गए हैं। प्रत्येक समूह में, पहली संख्या पर कुछ गणितीय संक्रियाएँ करने से दूसरी संख्या प्राप्त होती है। इसी प्रकार, दूसरी संख्या पर कुछ गणितीय संक्रियाएँ करने से तीसरी संख्या प्राप्त होती है, और इसी प्रकार आगे भी संख्याएं प्राप्त होती हैं। दिए गए विकल्पों में से कौन-सा विकल्प दिए गए समूहों के समान संक्रियाओं का अनुसरण करता है?
(नोट: दो/तीन अंकों की संख्या को संक्रियाओं के लिए अलग-अलग अंकों में नहीं तोड़ा जा सकता है। उदाहरण के लिए, यदि 37 के बाद 10 आता है, तो संक्रिया 3 + 7 नहीं हो सकती क्योंकि दो अंकों की संख्या को अलग-अलग अंकों में नहीं तोड़ा जा सकता है।)

10 - 12 - 14 - 17 ; 3 - 5 - 7 - 10

Ans
✔ 1. 13 - 15 - 17 - 20
✘ 2. 20 - 30 - 50 - 100
✘ 3. 9 - 11 - 13 - 15
✘ 4. 1 - 3 - 5 - 10

Question ID : **441009528020**
Option 1 ID : **4410092067486**
Option 2 ID : **4410092067487**
Option 3 ID : **4410092067485**
Option 4 ID : **4410092067484**

Q.8 दी गई श्रृंखला में ? के स्थान पर क्या आना चाहिए?
27 31 42 60 85 ?

Ans
✘ 1. 118
✘ 2. 119
✘ 3. 116
✔ 4. 117

Question ID : **4410091522235**
Option 1 ID : **4410096012052**
Option 2 ID : **4410096012053**
Option 3 ID : **4410096012051**
Option 4 ID : **4410096012050**

Q.9 संख्या 9236571 के प्रत्येक अंक को बाएं से दाएं आरोही क्रम में व्यवस्थित किया जाता है। इस प्रकार बनी नई संख्या में बाएं से दूसरे और दाएं से दूसरे अंक का योग कितना होगा?

Ans
✘ 1. 6
✔ 2. 9
✘ 3. 8
✘ 4. 7

Question ID : **441009553242**
Option 1 ID : **4410092168282**
Option 2 ID : **4410092168285**
Option 3 ID : **4410092168284**
Option 4 ID : **4410092168283**

QuickSarkari.com | WhatsApp Channel | Telegram: t.me/quick_sarkari

Q.10 अंग्रेजी वर्णानुक्रम पर आधारित, निम्नलिखित चार अक्षर-समूह युग्मों में से तीन किसी निश्चित तरीके से एक समान हैं तथा इस प्रकार एक ग्रुप का निर्माण करते हैं। निम्नलिखित में से कौन-सा अक्षर-समूह युग्म, उस ग्रुप से संबंधित नहीं है?
(नोट: असंगत अक्षर-समूह युग्म, व्यंजनों/स्वरों की संख्या या उनकी स्थिति पर आधारित नहीं है।)

Ans
✗ 1. PN-RO
✓ 2. WI-YB
✗ 3. RP-TQ
✗ 4. YW-AX

Question ID : **4410091391553**
Option 1 ID : **4410095495888**
Option 2 ID : **4410095495887**
Option 3 ID : **4410095495889**
Option 4 ID : **4410095495886**

Q.11 यदि 'A' का अर्थ '÷' है, 'B' का अर्थ '×' है, 'C' का अर्थ '+' है और 'D' का अर्थ '-' है, तो निम्नलिखित समीकरण में प्रश्न-चिह्न (?) के स्थान पर क्या आएगा?
17 B 8 A 4 D 36 C 43 = ?

Ans
✗ 1. 42
✓ 2. 41
✗ 3. 43
✗ 4. 39

Question ID : **4410091522025**
Option 1 ID : **4410096011229**
Option 2 ID : **4410096011226**
Option 3 ID : **4410096011227**
Option 4 ID : **4410096011228**

Q.12 नीचे संख्याओं के दो समुच्चय दिए गए हैं। संख्याओं के प्रत्येक समुच्चय में, पहली संख्या पर निश्चित गणितीय संक्रियाओं के परिणामस्वरूप दूसरी संख्या प्राप्त होती है। इसी प्रकार, दूसरी संख्या पर निश्चित गणितीय संक्रियाओं के परिणामस्वरूप तीसरी संख्या प्राप्त होती है और इसी प्रकार आगे भी संख्याएँ प्राप्त होती हैं। दिए गए विकल्पों में से कौन-सा विकल्प दिए गए समुच्चयों में अनुसरण की गई संक्रियाओं के समान संक्रियाओं का अनुसरण करता है?
(नोट: दो/तीन अंकों वाली संख्या को संक्रियाओं के लिए अलग-अलग अंकों में नहीं तोड़ा जा सकता है, उदाहरण के लिए, यदि 37 के बाद 10 है, तो संक्रिया 3 + 7 नहीं हो सकती है, क्योंकि दो अंकों वाली संख्या को अलग-अलग अंकों में नहीं तोड़ा जा सकता है)

12 - 14 - 16 - 20 ; 2 - 4 - 6 - 10

Ans
✓ 1. 92 - 94 - 96 - 100
✗ 2. 24 - 28 - 30 - 34
✗ 3. 22 - 24 - 26 - 32
✗ 4. 34 - 36 - 40 - 44

Question ID : **441009528021**
Option 1 ID : **4410092067491**
Option 2 ID : **4410092067489**
Option 3 ID : **4410092067488**
Option 4 ID : **4410092067490**

Q.13 किसी निश्चित तरीके से, अंग्रेजी वर्णमाला क्रम पर आधारित MUGF का संबंध LSDB से है। इसी प्रकार, QOTI का संबंध PMQE से है। इसी तर्क का अनुसरण करते हुए, BENK का संबंध निम्नलिखित में से किससे है?

Ans
✗ 1. ZCLI
✗ 2. YBKH
✓ 3. ACKG
✗ 4. ADMJ

Question ID : **441009860589**
Option 1 ID : **4410093395285**
Option 2 ID : **4410093395286**
Option 3 ID : **4410093395284**
Option 4 ID : **4410093395283**

Q.14 यदि 'A' का अर्थ '÷' है, 'B' का अर्थ 'x' है, 'C' का अर्थ '+' है और 'D' का अर्थ '-' है, तो निम्नलिखित समीकरण में प्रश्न-चिह्न (?) के स्थान पर क्या आएगा?

3 B 2 D 18 A 6 C 13 = ? D 4

Ans
✓ 1. 20
✗ 2. 17
✗ 3. 25
✗ 4. 23

Question ID : **441009555214**
Option 1 ID : **4410092176172**
Option 2 ID : **4410092176173**
Option 3 ID : **4410092176171**
Option 4 ID : **4410092176170**

Q.15 यदि संख्या 92157346 के प्रत्येक सम अंक में 2 जोड़ दिया जाए तथा प्रत्येक विषम अंक से 1 घटा दिया जाए, तो इस प्रकार बनी नई संख्या में बाएं से दूसरे अंक और दाएं से तीसरे अंक का योगफल ज्ञात कीजिए।

Ans
✗ 1. 12
✗ 2. 10
✗ 3. 8
✓ 4. 6

Question ID : **441009585652**
Option 1 ID : **4410092297737**
Option 2 ID : **4410092297736**
Option 3 ID : **4410092297735**
Option 4 ID : **4410092297734**

QuickSarkari.com | WhatsApp Channel | Telegram: t.me/quick_sarkari

Q.16 दी गई श्रृंखला में ? के स्थान पर क्या आना चाहिए?
7 13 31 85 247 ?

Ans
✔ 1. 733
✘ 2. 735
✘ 3. 734
✘ 4. 732

Question ID : **4410091522251**
Option 1 ID : **4410096012114**
Option 2 ID : **4410096012117**
Option 3 ID : **4410096012116**
Option 4 ID : **4410096012115**

Q.17 दी गई श्रृंखला में प्रश्न-चिह्न (?) को निम्नलिखित में से किस अक्षर-संख्या समूह द्वारा प्रतिस्थापित करने पर श्रृंखला तार्किक रूप से पूर्ण हो जाएगी?
QHW 22 SJY 21 ULA 20 WNC 19 ?

Ans
✘ 1. ZQE 21
✘ 2. ZPE 20
✔ 3. YPE 18
✘ 4. YQF 19

Question ID : **4410091503883**
Option 1 ID : **4410095939824**
Option 2 ID : **4410095939825**
Option 3 ID : **4410095939827**
Option 4 ID : **4410095939826**

QuickSarkari.com | WhatsApp Channel | Telegram: t.me/quick_sarkari

Q.18 यदि आकृति में दिखाए अनुसार, X-Y के अनुदिश जल स्रोत रखा जाए, तो दिए गए विकल्पों में से कौन-सा विकल्प आकृति का जल प्रतिबिंब होगा?



Ans

✗ 1.


✗ 2.


✗ 3.


✓ 4.


Quick Sarkari

Question ID : **4410091471931**
Option 1 ID : **4410095815616**
Option 2 ID : **4410095815615**
Option 3 ID : **4410095815617**
Option 4 ID : **4410095815618**

Q.19 उस समुच्चय का चयन कीजिए जिसमें संख्याएँ उसी प्रकार संबंधित हैं जिस प्रकार निम्नलिखित समुच्चयों की संख्याएँ संबंधित हैं।
(नोट: संख्याओं को उसके घटक अंकों में तोड़े बिना, संक्रियाएँ पूर्ण संख्याओं पर की जानी चाहिए। उदाहरण के लिए 13 को लीजिए - 13 पर संक्रियाएँ जैसे कि 13 में जोड़ना / घटाना / गुणा करना आदि 13 पर की जा सकती हैं। 13 को 1 व 3 में तोड़ना और फिर 1 व 3 पर गणितीय संक्रियाएँ करने की अनुमति नहीं है।)

(57,13,22)
(16,10,3)

Ans
✗ 1. (9,17,21)
✗ 2. (28,2,4)
✓ 3. (24,12,6)
✗ 4. (5,15,21)

Question ID : **4410091203688**
Option 1 ID : **4410094748256**
Option 2 ID : **4410094748254**
Option 3 ID : **4410094748253**
Option 4 ID : **4410094748255**

Q.20 निम्नलिखित में से कौन-सा अक्षर-संख्या समूह दी गई श्रृंखला में प्रश्न-चिह्न (?) को प्रतिस्थापित करके इसे तार्किक रूप से पूर्ण बना देगा?

EXX 66 JUT 53 ORP 40 ? YLH 14

Ans
✗ 1. BHT 21
✗ 2. HGT 29
✓ 3. TOL 27
✗ 4. OLP 23

Question ID : **4410091484917**
Option 1 ID : **4410095866151**
Option 2 ID : **4410095866152**
Option 3 ID : **4410095866149**
Option 4 ID : **4410095866150**

Section : **Arithmetical and Numerical Ability**

QuickSarkari.com | WhatsApp Channel | Telegram: t.me/quick_sarkari

Q.1 यदि ₹48,000 को 5% वार्षिक ब्याज दर पर 2 वर्षों के लिए जमा किया जाता है, तो चक्रवृद्धि ब्याज (जब ब्याज वार्षिक रूप से संयोजित होता है) और साधारण ब्याज के बीच का अंतर कितना होगा?

Ans
✗ 1. ₹128
✓ 2. ₹120
✗ 3. ₹119
✗ 4. ₹123

Question ID : **441009572013**
Option 1 ID : **4410092243174**
Option 2 ID : **4410092243172**
Option 3 ID : **4410092243175**
Option 4 ID : **4410092243173**

Q.2 केतन के दो पौत्र तुषार और सलिल हैं। 11 वर्षीय तुषार को केतन की संपत्ति से कुछ पैसे प्राप्त होते हैं तथा 12 वर्षीय सलिल को शेष राशि मिलती है। लेकिन तुषार और सलिल को पैसे तब मिलेंगे, जब वे 24 वर्ष के हो जाएंगे। तब तक पैसा एक बैंक में जमा रहा था जिस पर 8% का वार्षिक चक्रवृद्धि ब्याज प्राप्त हुआ, जहां ब्याज वार्षिक रूप से संयोजित की गई थी। जब दोनों 24 वर्ष के हो जाते हैं, तो उन्हें समान राशि प्राप्त होती है। यदि केतन के पास कुल ₹23,400 थे, तो प्रारंभ में केतन ने सलिल को कितने रुपए (₹ में) दिए थे?

Ans
✗ 1. 12,500
✗ 2. 11,000
✓ 3. 12,150
✗ 4. 11,250

Question ID : **441009543546**
Option 1 ID : **4410092129582**
Option 2 ID : **4410092129583**
Option 3 ID : **4410092129580**
Option 4 ID : **4410092129581**

Q.3 यदि $(-3)^{8k+2} \times (-3)^{7} = (-3)^{17}$ है, तो k का मान ज्ञात कीजिए।

Ans
✗ 1. 2
✗ 2. 7
✓ 3. 1
✗ 4. 9

Question ID : **441009896055**
Option 1 ID : **4410093538293**
Option 2 ID : **4410093538291**
Option 3 ID : **4410093538290**
Option 4 ID : **4410093538292**

QuickSarkari.com | WhatsApp Channel | Telegram: t.me/quick_sarkari

Q.4 दो संख्याओं का महत्तम समापवर्तक (H.C.F.) और लघुत्तम समापवर्त्य (L.C.M.) का मान क्रमश: 2 और 656 हैं। यदि उनमें से एक संख्या 82 है, तो दूसरी संख्या ज्ञात कीजिए।

Ans
✗ 1. 2
✗ 2. 72
✓ 3. 16
✗ 4. 111

Question ID : **441009525495**
Option 1 ID : **4410092057401**
Option 2 ID : **4410092057402**
Option 3 ID : **4410092057399**
Option 4 ID : **4410092057400**

Q.5 75 के 30% का मान 50 के 25% से कितना अधिक है?

Ans
✗ 1. 12
✗ 2. 5
✓ 3. 10
✗ 4. 7

Question ID : **441009856652**
Option 1 ID : **4410093379583**
Option 2 ID : **4410093379581**
Option 3 ID : **4410093379580**
Option 4 ID : **4410093379582**

Q.6 m का वह मान ज्ञात कीजिए जिसके लिए यह निम्नांकित को संतुष्ट करता है।

$$\left(\frac{17}{10}\right)^3 \times \left(\frac{10}{17}\right)^2 \times \left(\frac{17}{10}\right)^8 = \left(\frac{10}{17}\right)^{8m+9}$$

Ans
✗ 1. $-\frac{7}{4}$
✗ 2. $-\frac{3}{4}$
✓ 3. $-\frac{9}{4}$
✗ 4. $-\frac{1}{4}$

Question ID : **441009913009**
Option 1 ID : **4410093606290**
Option 2 ID : **4410093606289**
Option 3 ID : **4410093606287**
Option 4 ID : **4410093606288**

Q.7 निम्न व्यंजक का मान ज्ञात कीजिए।

$6^3 + 12^3 + 18^3 + \cdots + 66^3$

Ans
✗ 1. 94896
✗ 2. 903312
✗ 3. 93312
✓ 4. 940896

Question ID : **4410091536748**
Option 1 ID : **4410096070205**
Option 2 ID : **4410096070206**
Option 3 ID : **4410096070204**
Option 4 ID : **4410096070203**

Q.8 एक रसायनज्ञ के पास अम्ल के दो विलयन हैं: विलयन A में 15% अम्ल सांद्रता है और विलयन B में 40% अम्ल सांद्रता है। वह 25% अम्ल विलयन बनाना चाहता है। विलयन A और विलयन B को किस अनुपात में मिलाना चाहिए?

Ans
✗ 1. 1:3
✓ 2. 3:2
✗ 3. 2:3
✗ 4. 3:1

Question ID : **4410091536635**
Option 1 ID : **4410096069738**
Option 2 ID : **4410096069736**
Option 3 ID : **4410096069737**
Option 4 ID : **4410096069739**

Q.9 निम्नलिखित व्यंजक को सरलीकृत कीजिए।

$20 \times 3 \text{ of } 2 + 18 \div 6 - 15 \text{ of } 35 \div 5$

Ans
✗ 1. 20
✗ 2. 16
✗ 3. 22
✓ 4. 18

Question ID : **441009896294**
Option 1 ID : **4410093539247**
Option 2 ID : **4410093539249**
Option 3 ID : **4410093539246**
Option 4 ID : **4410093539248**

QuickSarkari.com | WhatsApp Channel | Telegram: t.me/quick_sarkari

Q.10 पाई चार्ट में कंपनी A और कंपनी B का चार श्रेणियों में बिक्री बंटन को प्रदर्शित किया गया है।

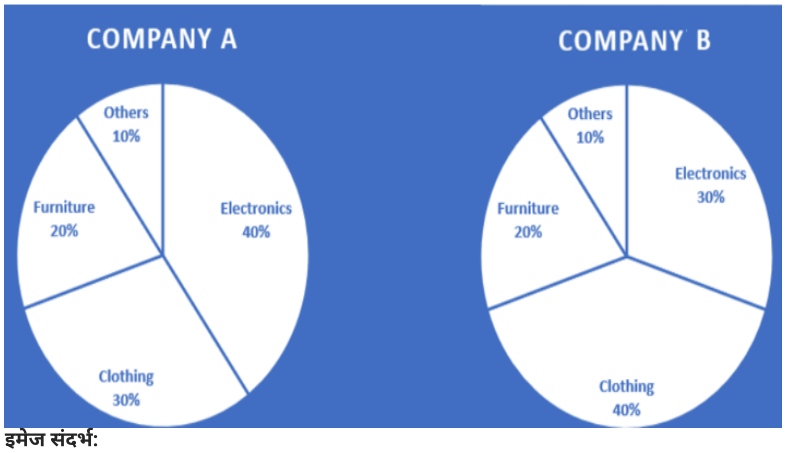

इमेज संदर्भ:
कंपनी A: इलेक्ट्रॉनिक्स 40% (Electronics 40%), कपड़े 30% (Clothing 30%), फर्नीचर 20% (Furniture 20%), अन्य 10% (others 10%)
कंपनी B: इलेक्ट्रॉनिक्स 30% (Electronics 30%), कपड़े 40% (Clothing 40%), फर्नीचर 20% (Furniture 20%), अन्य 10% (others 10%)
कंपनी B की कपड़ों की बिक्री, कंपनी A की कपड़ों की बिक्री से कितने प्रतिशत अधिक है?

Ans
✗ 1. 20%
✓ 2. 10%
✗ 3. 15%
✗ 4. 5%

Question ID : **4410091441255**
Option 1 ID : **4410095693678**
Option 2 ID : **4410095693676**
Option 3 ID : **4410095693677**
Option 4 ID : **4410095693675**

Q.11 एक दुकानदार को ₹54 प्रति kg और ₹108 प्रति kg की दो किस्मों के गेहूं को किस अनुपात में मिलाना चाहिए, ताकि यदि वह मिश्रण को ₹141 प्रति kg पर बेचे तो उसे 50% का लाभ हो?

Ans
✗ 1. 11:27
✗ 2. 17:25
✓ 3. 7:20
✗ 4. 9:21

Question ID : **441009539808**
Option 1 ID : **4410092114630**
Option 2 ID : **4410092114631**
Option 3 ID : **4410092114628**
Option 4 ID : **4410092114629**

QuickSarkari.com | WhatsApp Channel | Telegram: t.me/quick_sarkari

Q.12 ₹5,000 की उधार ली गई राशि पर 5% वार्षिक ब्याज दर से 6 वर्षों के लिए साधारण ब्याज (₹ में) ज्ञात कीजिए।

Ans
✗ 1. 1,440
✓ 2. 1,500
✗ 3. 1,460
✗ 4. 1,540

Question ID : **4410098522 19**
Option 1 ID : **4410093361850**
Option 2 ID : **4410093361848**
Option 3 ID : **4410093361851**
Option 4 ID : **4410093361849**

Q.13 What is the sum of the squares of the first 20 natural numbers?

Ans
✗ 1. 2965
✗ 2. 2190
✗ 3. 2500
✓ 4. 2870

Question ID : **4410091450539**
Option 1 ID : **4410095730621**
Option 2 ID : **4410095730618**
Option 3 ID : **4410095730619**
Option 4 ID : **4410095730620**

Q.14 निम्नलिखित में से कौन-सी संख्या 16 से विभाज्य है?

Ans
✗ 1. 210441
✗ 2. 212893
✓ 3. 212672
✗ 4. 209673

Question ID : **4410098960 82**
Option 1 ID : **4410093538399**
Option 2 ID : **4410093538401**
Option 3 ID : **4410093538398**
Option 4 ID : **4410093538400**

QuickSarkari.com | WhatsApp Channel | Telegram: t.me/quick_sarkari

Q.15 दो संख्याओं का अनुपात 10 : 3 है और उनका योग 260 है। उन संख्याओं का ल.स.प. ज्ञात कीजिए।

Ans
1. 480
2. 560
3. 600
4. 660

Question ID : **4410091536860**
Option 1 ID : **4410096070734**
Option 2 ID : **4410096070733**
Option 3 ID : **4410096070731**
Option 4 ID : **4410096070732**

Q.16 प्रेक्षणों 49, 13, 60, 56, 71, 98, 91, 17 और 49 का समांतर माध्य ज्ञात कीजिए।

Ans
1. 65
2. 56
3. 55
4. 61

Question ID : **441009583221**
Option 1 ID : **4410092288012**
Option 2 ID : **4410092288010**
Option 3 ID : **4410092288013**
Option 4 ID : **4410092288011**

QuickSarkari.com | WhatsApp Channel | Telegram: t.me/quick_sarkari

Q.17 निम्नलिखित ग्राफ में चार वर्षों में एक विद्यालय में नामांकित छात्र और छात्राओं की संख्या को प्रदर्शित किया गया है।

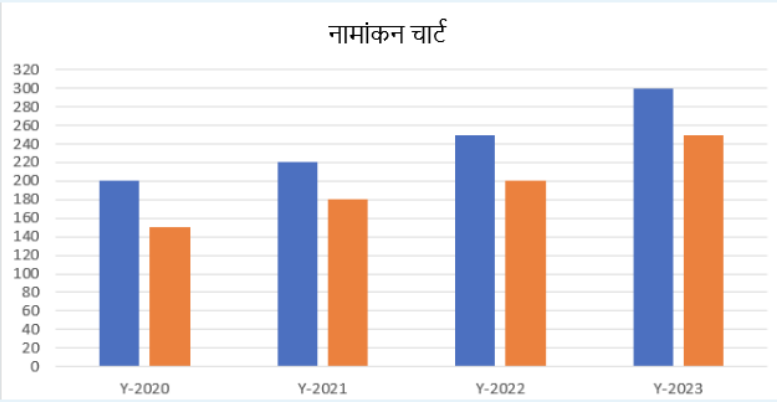

2021 और 2022 में मिलाकर कुल कितने विद्यार्थियों ने नामांकन कराया?

Ans
✗ 1. 800
✗ 2. 900
✓ 3. 850
✗ 4. 750

Question ID : **4410091441346**
Option 1 ID : **4410095694032**
Option 2 ID : **4410095694034**
Option 3 ID : **4410095694033**
Option 4 ID : **4410095694031**

QuickSarkari.com | WhatsApp Channel | Telegram: t.me/quick_sarkari

Q.18 निम्नलिखित को सरल कीजिए।

$$\frac{\left(\frac{15}{2}+\frac{17}{6}\ of\ \frac{6}{2}\right)}{\left(19-\frac{17}{6}\div\frac{2}{6}\right)}$$

Ans

✗ 1. $\frac{29}{31}$

✗ 2. $\frac{40}{23}$

✗ 3. $\frac{37}{22}$

✓ 4. $\frac{32}{21}$

Question ID : **441009912565**
Option 1 ID : **4410093604513**
Option 2 ID : **4410093604514**
Option 3 ID : **4410093604512**
Option 4 ID : **4410093604511**

Q.19 दो मित्रों सलिल और मुकुंद की मासिक आय का अनुपात क्रमशः 6 : 7 है, और दोनों प्रत्येक माह ₹24,000 की बचत करते हैं। यदि उनके मासिक व्यय का अनुपात 2 : 4 है, तो सलिल की मासिक आय (₹ में) ज्ञात कीजिए।

Ans

✗ 1. 29,800

✓ 2. 28,800

✗ 3. 40,320

✗ 4. 27,800

Question ID : **441009854199**
Option 1 ID : **4410093369769**
Option 2 ID : **4410093369768**
Option 3 ID : **4410093369771**
Option 4 ID : **4410093369770**

QuickSarkari.com | WhatsApp Channel | Telegram: t.me/quick_sarkari

Q.20 एक कंपनी में A, B और C तीन विभाग हैं, जिनमें क्रमशः 10, 15 और 25 कर्मचारी हैं। विभाग A, B और C में औसत वेतन क्रमशः ₹50,000, ₹60,000 और ₹70,000 है। यदि कंपनी, विभाग A में 10% वेतन वृद्धि करती है, विभाग B में 5% वेतन वृद्धि करती है और विभाग C में 8% वेतन वृद्धि करती है, तो कंपनी का नया समग्र औसत वेतन कितना होगा?

Ans
✗ 1. ₹66,000
✗ 2. ₹64,500
✓ 3. ₹67,700
✗ 4. ₹65,660

Question ID : **4410091440978**
Option 1 ID : **4410095692581**
Option 2 ID : **4410095692579**
Option 3 ID : **4410095692582**
Option 4 ID : **4410095692580**

Section : **Arithmetical and Numerical Ability1**

Q.1 एक दुकान स्वेटर पर 30% की छूट दे रही है। यदि छूट के बाद स्वेटर का विक्रय मूल्य ₹840 है, तो स्वेटर का मूल अंकित मूल्य कितना था?

Ans
✗ 1. ₹1,350
✓ 2. ₹1,200
✗ 3. ₹1,400
✗ 4. ₹1,140

Question ID : **4410091536898**
Option 1 ID : **4410096070885**
Option 2 ID : **4410096070884**
Option 3 ID : **4410096070886**
Option 4 ID : **4410096070883**

Q.2 Find the outer surface area of a conical vessel having a radius of 8 cm and a slant height of 14 cm. (Use $\pi = \frac{22}{7}$)

Ans
✗ 1. 364 cm2
✗ 2. 264 cm2
✗ 3. 252 cm2
✓ 4. 352 cm2

Question ID : **4410091537605**
Option 1 ID : **4410096073665**
Option 2 ID : **4410096073666**
Option 3 ID : **4410096073664**
Option 4 ID : **4410096073663**

QuickSarkari.com | WhatsApp Channel | Telegram: t.me/quick_sarkari

Q.3 25 cm × 12.5 cm × 7.5 cm आकार की ईंटों से 6 m × 3 m × 2.5 m की एक दीवार बनाई जानी है। इस दीवार को बनाने के लिए कितनी ईंटों की आवश्यकता (मोर्टर जगह की उपेक्षा करते हुए) होगी?

Ans
✗ 1. 19,550
✓ 2. 19,200
✗ 3. 16,200
✗ 4. 18,250

Question ID : **4410091537868**
Option 1 ID : **4410096074741**
Option 2 ID : **4410096074739**
Option 3 ID : **4410096074740**
Option 4 ID : **4410096074742**

Q.4 किसी वस्तु का क्रय मूल्य ₹8,800 है। विक्रेता 20% की छूट देने के बाद 15% लाभ अर्जित करना चाहता है। उसे वस्तु पर कितना अंकित करना चाहिए?

Ans
✗ 1. ₹12,500
✗ 2. ₹12,550
✗ 3. ₹12,600
✓ 4. ₹12,650

Question ID : **441009894248**
Option 1 ID : **4410093531065**
Option 2 ID : **4410093531064**
Option 3 ID : **4410093531063**
Option 4 ID : **4410093531062**

Q.5 ₹28,000 को तीन भागों में इस प्रकार विभाजित कीजिए कि पहले भाग का 1/2, दूसरे भाग का 1/4 और तीसरे भाग का 1/8 भाग बराबर हो। पहला भाग (₹ में) ज्ञात कीजिए।

Ans
✗ 1. 4200
✓ 2. 4000
✗ 3. 3800
✗ 4. 4100

Question ID : **441009899492**
Option 1 ID : **4410093552039**
Option 2 ID : **4410093552038**
Option 3 ID : **4410093552040**
Option 4 ID : **4410093552041**

QuickSarkari.com | WhatsApp Channel | Telegram: t.me/quick_sarkari

Q.6 एक व्यक्ति 9 km/h की चाल से चल रहा है। प्रत्येक किलोमीटर के बाद, वह 5 मिनट का विश्राम करता है। 18 km की दूरी तय करने में, उसे कितना समय लगेगा?

Ans
✗ 1. 3 घंटे 35 मिनट
✓ 2. 3 घंटे 25 मिनट
✗ 3. 3 घंटे 20 मिनट
✗ 4. 3 घंटे 10 मिनट

Question ID : **4410095459 49**
Option 1 ID : **4410092139195**
Option 2 ID : **4410092139192**
Option 3 ID : **4410092139193**
Option 4 ID : **4410092139194**

Q.7 A और B के वेतन का अनुपात 4:5 है। यदि B का वेतन ₹30,000 है, तो A का वेतन ज्ञात कीजिए।

Ans
✗ 1. ₹25,100
✗ 2. ₹24,100
✓ 3. ₹24,000
✗ 4. ₹22,000

Question ID : **4410091537013**
Option 1 ID : **4410096071346**
Option 2 ID : **4410096071345**
Option 3 ID : **4410096071343**
Option 4 ID : **4410096071344**

Q.8 यदि p : q : r = 19 : 13 : 6 और r : s = 30 : 6 है, तो p : q : r : s ज्ञात कीजिए।

Ans
✗ 1. 96:66:33:9
✗ 2. 93:72:32:12
✓ 3. 95:65:30:6
✗ 4. 92:68:37:13

Question ID : **441009898533**
Option 1 ID : **4410093548205**
Option 2 ID : **4410093548204**
Option 3 ID : **4410093548202**
Option 4 ID : **4410093548203**

QuickSarkari.com | WhatsApp Channel | Telegram: t.me/quick_sarkari

Q.9 Find the area of a right-angled triangle with base sides of 8 cm and a hypotenuse of 17 cm.

Ans
✗ 1. 90 cm2
✗ 2. 68 cm2
✗ 3. 75 cm2
✓ 4. 60 cm2

Question ID : **4410091537425**
Option 1 ID : **4410096072988**
Option 2 ID : **4410096072990**
Option 3 ID : **4410096072989**
Option 4 ID : **4410096072987**

Q.10 A, B और C एक कार्य को क्रमश: 3, 9 और 18 दिनों में पूरा कर सकते हैं। यदि वे तीनों मिलकर उसी कार्य का तीन गुना करें, तो उन्हें कितना समय (दिनों में) लगेगा?

Ans
✗ 1. 12
✗ 2. 7
✓ 3. 6
✗ 4. 18

Question ID : **441009897452**
Option 1 ID : **4410093543879**
Option 2 ID : **4410093543881**
Option 3 ID : **4410093543878**
Option 4 ID : **4410093543880**

Q.11 The volume of a cube is 4913 cm^3. What is the surface area of the cube?

Ans
✗ 1. 1244 cm2
✗ 2. 1234 cm2
✗ 3. 1534 cm2
✓ 4. 1734 cm2

Question ID : **4410091537863**
Option 1 ID : **4410096074721**
Option 2 ID : **4410096074722**
Option 3 ID : **4410096074720**
Option 4 ID : **4410096074719**

QuickSarkari.com | WhatsApp Channel | Telegram: t.me/quick_sarkari

Q.12 A retailer buys an electronic item for ₹230. His overhead expenses are ₹20. He sells the electronic item for ₹440 and makes x% profit. The value of x is:

Ans
✗ 1. 56
✓ 2. 76
✗ 3. 46
✗ 4. 66

Question ID : **4410095741 70**
Option 1 ID : **4410092251802**
Option 2 ID : **4410092251800**
Option 3 ID : **4410092251801**
Option 4 ID : **4410092251803**

Q.13 Find the total surface area of a cone whose radius is 7 cm and slant height is 25 cm. (Use π = 22/7)

Ans
✗ 1. 792 cm²
✗ 2. 736 cm²
✓ 3. 704 cm²
✗ 4. 814 cm²

Question ID : **4410091460297**
Option 1 ID : **4410095769363**
Option 2 ID : **4410095769362**
Option 3 ID : **4410095769361**
Option 4 ID : **4410095769364**

Q.14 तीन दोस्तों, P, Q और R ने क्रमशः ₹6,200, ₹9,200 और ₹1,400 का निवेश करके एक व्यवसाय शुरू किया। 8 महीने बाद, P ने ₹460 निकाल लिए, Q ने ₹980 निकाल लिए और R ने ₹960 का और निवेश किया। वर्ष के अंत में, कंपनी को ₹83,200 का लाभ हुआ, जिसमें से उन्होंने 48% दान कर दिया। R का लाभ हिस्सा (₹ में) ज्ञात कीजिए।

Ans
✗ 1. 4,478
✓ 2. 4,472
✗ 3. 4,479
✗ 4. 4,490

Question ID : **441009898382**
Option 1 ID : **4410093547599**
Option 2 ID : **4410093547598**
Option 3 ID : **4410093547601**
Option 4 ID : **4410093547600**

QuickSarkari.com | WhatsApp Channel | Telegram: t.me/quick_sarkari

Q.15 दो नल एक टंकी को क्रमशः 3 घंटे और 65 घंटे में भर सकते हैं। तीसरा नल उसे 65 घंटे में खाली कर सकता है। यदि सभी नल एक साथ खोले जाएं, तो खाली टंकी का एक-तिहाई भाग भरने में कितना समय (घंटों में) लगेगा?

Ans
✗ 1. 3
✗ 2. 2
✗ 3. 4
✓ 4. 1

Question ID : **4410095186 57**
Option 1 ID : **4410092030049**
Option 2 ID : **4410092030048**
Option 3 ID : **4410092030050**
Option 4 ID : **4410092030047**

Q.16 The circumference of the base of a cylindrical vessel is 440 cm and its height is 15 cm. How many litres of water can it hold? $\left(\text{Take } \pi = \frac{22}{7}\right)$

Ans
✗ 1. 272
✗ 2. 246
✓ 3. 231
✗ 4. 216

Question ID : **4410096003 57**
Option 1 ID : **4410092356547**
Option 2 ID : **4410092356548**
Option 3 ID : **4410092356545**
Option 4 ID : **4410092356546**

Q.17 एक यात्री शहर A से शहर B तक 60 km/h की चाल से जाता है और उसी मार्ग से 40 km/h की चाल से वापस आता है। यदि पूरी यात्रा में कुल समय 5 घंटे लगता है, तो दोनों शहरों के बीच की दूरी ज्ञात कीजिए।

Ans
✓ 1. 120 km
✗ 2. 200 km
✗ 3. 100 km
✗ 4. 150 km

Question ID : **4410091537029**
Option 1 ID : **4410096071407**
Option 2 ID : **4410096071409**
Option 3 ID : **4410096071408**
Option 4 ID : **4410096071410**

QuickSarkari.com | WhatsApp Channel | Telegram: t.me/quick_sarkari

Q.18 Find the surface area of a sphere whose radius is 7 cm. (Use π = 22/7)

Ans
✔ 1. 616 cm²
✘ 2. 462 cm²
✘ 3. 308 cm²
✘ 4. 784 cm²

Question ID : **4410091472632**
Option 1 ID : **4410095818395**
Option 2 ID : **4410095818394**
Option 3 ID : **4410095818393**
Option 4 ID : **4410095818396**

Q.19 The sides of a triangle are 13 cm, 14 cm, and 15 cm. Find the area of the triangle.

Ans
✘ 1. 80 cm²
✘ 2. 90 cm²
✔ 3. 84 cm²
✘ 4. 82 cm²

Question ID : **4410091460130**
Option 1 ID : **4410095768701**
Option 2 ID : **4410095768704**
Option 3 ID : **4410095768703**
Option 4 ID : **4410095768702**

Q.20 किसी व्यक्ति को एक वस्तु को ₹270 में बेचने पर 10% की हानि होती है। यदि वह उसे ₹303 में बेचता है, तो उसका लाभ/हानि प्रतिशत कितना होगा?

Ans
✔ 1. लाभ, 1%
✘ 2. लाभ, 2%
✘ 3. हानि, 3%
✘ 4. हानि, 2%

Question ID : **441009537905**
Option 1 ID : **4410092107016**
Option 2 ID : **4410092107018**
Option 3 ID : **4410092107019**
Option 4 ID : **4410092107017**

Section : **Test of Hindi Language and Comprehension**

QuickSarkari.com | WhatsApp Channel | Telegram: t.me/quick_sarkari

Q.1 'जो पहले कभी घटित नहीं हुआ हो' वाक्यांश के लिए एक शब्द होगा-3096

Ans
✗ 1. अभ्याक्रमी
✗ 2. घटनाचक्र
✓ 3. अभूतपूर्व
✗ 4. अद्रितपूर्व

Question ID : **441009474851**
Option 1 ID : **4410091854817**
Option 2 ID : **4410091854820**
Option 3 ID : **4410091854819**
Option 4 ID : **4410091854818**

Q.2 दिए गए वाक्य में रिक्त स्थान के लिए उपयुक्त विशेषण चुनें।
तुम्हारा सूटकेस बहुत ..... है।

Ans
✗ 1. तेज
✗ 2. कायर
✗ 3. ईमानदार
✓ 4. भारी

Question ID : **4410091452409**
Option 1 ID : **4410095738033**
Option 2 ID : **4410095738032**
Option 3 ID : **4410095738034**
Option 4 ID : **4410095738035**

Q.3 सफलता कभी-कभी क्षणभर में नष्ट होने वाली होती है, इसलिए मेहनत जारी रखनी चाहिए।
रेखांकित वाक्यांश के लिए सार्थक शब्द क्या है?

Ans
✗ 1. क्षुधातुर
✗ 2. सत्यवादी
✓ 3. क्षणभंगुर
✗ 4. सुषुप्सा

Question ID : **4410091456766**
Option 1 ID : **4410095755370**
Option 2 ID : **4410095755373**
Option 3 ID : **4410095755372**
Option 4 ID : **4410095755371**

QuickSarkari.com | WhatsApp Channel | Telegram: t.me/quick_sarkari

Q.4 'जो किये गये उपकारों को मानता है' वाक्यांश के लिए सार्थक शब्द होगा -5233

Ans
✗ 1. कृतित्त्व
✗ 2. कृतघ्न
✓ 3. कृतज्ञ
✗ 4. बहुज्ञ

Question ID : **441009476988**
Option 1 ID : **4410091863368**
Option 2 ID : **4410091863365**
Option 3 ID : **4410091863367**
Option 4 ID : **4410091863366**

Q.5 निम्नलिखित वाक्यांश के लिए सार्थक शब्द चुनिये
जो व्यक्ति भाग्य पर विश्वास करे

Ans
✗ 1. भानुमती
✗ 2. बहुश्रुत
✓ 3. भाग्यवादी
✗ 4. भास्वर

Question ID : **4410091489679**
Option 1 ID : **4410095884750**
Option 2 ID : **4410095884751**
Option 3 ID : **4410095884752**
Option 4 ID : **4410095884749**

Q.6 'बढ़-चढ़ कर तीखी बातें कहना' अर्थ के लिए सही मुहावरा क्या है?

Ans
✗ 1. साठ-गाँठ करना
✗ 2. सूरज को दीपक दिखाना
✓ 3. जबान कैंची की तरह चलना
✗ 4. दाँतों तले उँगली दबाना

Question ID : **4410091455853**
Option 1 ID : **4410095751763**
Option 2 ID : **4410095751764**
Option 3 ID : **4410095751765**
Option 4 ID : **4410095751766**

QuickSarkari.com | WhatsApp Channel | Telegram: t.me/quick_sarkari

Q.7 निम्नलिखित में से किस मुहावरे का अर्थ संगत नहीं है?

Ans
✗ 1. शीशे में मुँह देखो - अपनी योग्यता अयोग्यता को समझना

✗ 2. सात घाट का पानी पीना - विस्तृत अनुभव होना

✗ 3. हाथ उठाना - मारने को तत्पर होना

✓ 4. भाड़े का टट्टू - प्रतीक्षा करना

Question ID : **4410091455870**
Option 1 ID : **4410095751841**
Option 2 ID : **4410095751840**
Option 3 ID : **4410095751842**
Option 4 ID : **4410095751839**

Q.8 दिए गए वाक्य को क्रम में लिखें -
और पुनरुत्थान में
महत्वपूर्ण भूमिका निभाई है
आधुनिक शिक्षा प्रणाली ने
ग्रामीण क्षेत्रों के विकास

Ans
✗ 1. 4321

✗ 2. 4312

✓ 3. 3412

✗ 4. 2134

Question ID : **4410091456528**
Option 1 ID : **4410095754445**
Option 2 ID : **4410095754443**
Option 3 ID : **4410095754444**
Option 4 ID : **4410095754442**

Q.9 विशेषण के आधार पर निम्न वाक्य पूर्ण करें -
यह _____ घड़ी मेरे पिता ने खरीदी है।

Ans
✗ 1. आलसी

✓ 2. कीमती

✗ 3. मानसी

✗ 4. मालती

Question ID : **441009449317**
Option 1 ID : **4410091755938**
Option 2 ID : **4410091755939**
Option 3 ID : **4410091755940**
Option 4 ID : **4410091755937**

QuickSarkari.com | WhatsApp Channel | Telegram: t.me/quick_sarkari

Q.10 रेखांकित कारक चिह्न के आधार पर कारक के उचित भेद का चुनाव करें-
उसने पुरस्कार अपने भाई को समर्पित किया। वाक्य में ..... कारक है।

Ans
✗ 1. संबोधन कारक
✗ 2. अधिकरण कारक
✗ 3. अपादान कारक
✓ 4. संप्रदान कारक

Question ID : **4410091456097**
Option 1 ID : **4410095752740**
Option 2 ID : **4410095752738**
Option 3 ID : **4410095752739**
Option 4 ID : **4410095752741**

Q.11 'अंडे सेना' मुहावरे का अर्थ निम्न में से है-- 2428

Ans
✓ 1. घर में बेकार बैठना
✗ 2. पैसा खर्च न करना
✗ 3. अंडों की रखवाली करना
✗ 4. भेद छिपाए रखना

Question ID : **441009442708**
Option 1 ID : **4410091729514**
Option 2 ID : **4410091729516**
Option 3 ID : **4410091729513**
Option 4 ID : **4410091729515**

Q.12 नीचे दिए विकल्पों में से सही पदक्रम वाला वाक्य चुनें।4631

Ans
✓ 1. वह किसी दूसरे की टोपी उठाकर चलता बना।
✗ 2. वह चलता बना उठाकर दूसरे की टोपी किसी।
✗ 3. दूसरे की टोपी वह किसी उठाकर चलता बना।
✗ 4. उठाकर दूसरे की टोपी चलता बना वह किसी।

Question ID : **441009476386**
Option 1 ID : **4410091860958**
Option 2 ID : **4410091860959**
Option 3 ID : **4410091860957**
Option 4 ID : **4410091860960**

QuickSarkari.com | WhatsApp Channel | Telegram: t.me/quick_sarkari

Q.13 दिए गए वाक्यांश के लिए सार्थक शब्द चुनें-
जो आने या होने वाला हो

Ans
✔ 1. भावी
✘ 2. अति
✘ 3. भूत
✘ 4. वर्तमान

Question ID : **4410091438076**
Option 1 ID : **4410095681003**
Option 2 ID : **4410095681004**
Option 3 ID : **4410095681001**
Option 4 ID : **4410095681002**

Q.14 'दिन भर चले अढ़ाई कोस' लोकोक्ति का क्या अर्थ है?

Ans
✔ 1. समय बहुत लगा और काम बहुत थोड़ा हुआ
✘ 2. दो की लड़ाई में तीसरे की बन आती है
✘ 3. आलसी होना
✘ 4. कोई काम न करना

Question ID : **4410091456697**
Option 1 ID : **4410095755103**
Option 2 ID : **4410095755102**
Option 3 ID : **4410095755104**
Option 4 ID : **4410095755105**

Q.15 रेशमा धीरे-धीरे चल रही है। वाक्य में ..... क्रिया-विशेषण है।
दिए गए विकल्प में से क्रिया-विशेषण के उचित भेद को चुन कर वाक्य पूर्ण करें -

Ans
✘ 1. स्थानवाचक
✔ 2. रीतिवाचक
✘ 3. कालवाचक
✘ 4. परिमाणवाचक

Question ID : **4410091456047**
Option 1 ID : **4410095752542**
Option 2 ID : **4410095752543**
Option 3 ID : **4410095752544**
Option 4 ID : **4410095752545**

QuickSarkari.com | WhatsApp Channel | Telegram: t.me/quick_sarkari

Q.16 'ज्यों-ज्यों भीजे कामरी त्यों-त्यों भारी होय' लोकोक्ति का अर्थ क्या है?

Ans
✗ 1. झूठा आदमी एक बात पर पक्का नहीं रह पाता।
✓ 2. जैसे-जैसे समयन बीतता है ज़िम्मेदारियाँ बढ़ती जाती हैं।
✗ 3. लाभ के लालच में चापलूसी करनी पड़ती है।
✗ 4. जहाँ कोई आकर्षण होगा वहाँ लोग जमा होंगे ही।

Question ID : **4410091455808**
Option 1 ID : **4410095751569**
Option 2 ID : **4410095751570**
Option 3 ID : **4410095751567**
Option 4 ID : **4410095751568**

Q.17 निम्नलिखित वाक्य को उपयुक्त विशेषण के द्वारा पूरा कीजिए-

जंगल में _____ हाथियों को देखकर हम डर गएँ।2999

Ans
✗ 1. दहाड़ते
✗ 2. चीखते
✓ 3. चिंघाड़ते
✗ 4. रंभाते

Question ID : **441009449359**
Option 1 ID : **4410091756105**
Option 2 ID : **4410091756106**
Option 3 ID : **4410091756108**
Option 4 ID : **4410091756107**

Q.18 दिए गए वाक्य में रिक्त स्थान के लिए उपयुक्त कारक चुनें।
हमारा कर्तव्य यह कि दुखियों ..... सहायता की जाए।

Ans
✗ 1. के
✗ 2. में
✓ 3. की
✗ 4. कि

Question ID : **4410091452126**
Option 1 ID : **4410095736918**
Option 2 ID : **4410095736919**
Option 3 ID : **4410095736921**
Option 4 ID : **4410095736920**

QuickSarkari.com | WhatsApp Channel | Telegram: t.me/quick_sarkari

Q.19 संजना गाती है। वाक्य में ..... क्रिया है।
दिए गए विकल्प में से क्रिया के उचित भेद को चुन कर वाक्य पूर्ण करें -

Ans
✔ 1. अकर्मक क्रिया
✘ 2. प्रेरणार्थक क्रिया
✘ 3. पूर्वकालिक क्रिया
✘ 4. संयुक्त क्रिया

Question ID : **4410091456037**
Option 1 ID : **4410095752505**
Option 2 ID : **4410095752503**
Option 3 ID : **4410095752504**
Option 4 ID : **4410095752502**

Q.20 निम्नलिखित मुहावरे का अर्थ बताइए
राई का पहाड़ बनाना

Ans
✘ 1. परिश्रम करना
✘ 2. गुस्सा होना
✘ 3. कठिनाई का सामना करना
✔ 4. छोटी बात को बड़ा चढ़ा कर कहना

Question ID : **4410091489884**
Option 1 ID : **4410095885573**
Option 2 ID : **4410095885576**
Option 3 ID : **4410095885575**
Option 4 ID : **4410095885574**

Section : Test of Hindi Language and Comprehension1

Q.1 दिए गए वाक्य के किस भाग में त्रुटि है?
संपादक ने लेखक से कहा कि प्रारंभिक अनुछेद में विषय की पृष्ठभूमि स्पष्ट होनी चाहिए।

Ans
✘ 1. प्रारंभिक
✔ 2. अनुछेद
✘ 3. संपादक
✘ 4. पृष्ठभूमि

Question ID : **4410091456449**
Option 1 ID : **4410095754135**
Option 2 ID : **4410095754136**
Option 3 ID : **4410095754134**
Option 4 ID : **4410095754137**

QuickSarkari.com | WhatsApp Channel | Telegram: t.me/quick_sarkari

Q.2 दिए गए वाक्य के किस भाग में त्रुटि है?
आप किस हेतू इतना परिश्रम करते हैं?

Ans
✔ 1. आप किस हेतू
✘ 2. करते हैं?
✘ 3. परिश्रम
✘ 4. इतना

Question ID : **4410091456836**
Option 1 ID : **4410095755650**
Option 2 ID : **4410095755653**
Option 3 ID : **4410095755652**
Option 4 ID : **4410095755651**

Q.3 पर्यावरण की रक्षा के लिए हम सबका संकल्प आवश्यक है।

वाक्य में प्रयुक्त संकल्प शब्द का विलोम क्या है।

Ans
✘ 1. प्रतिज्ञा
✘ 2. निर्णय
✔ 3. विकल्प
✘ 4. इच्छाशक्ति

Question ID : **4410091455278**
Option 1 ID : **4410095749398**
Option 2 ID : **4410095749397**
Option 3 ID : **4410095749400**
Option 4 ID : **4410095749399**

Q.4 निम्नलिखित वाक्य में रेखांकित शब्द का विलोम शब्द कौन सा है?
<u>निरक्षर</u> व्यक्ति अखबार नहीं पढ़ सकता।

Ans
✔ 1. साक्षर
✘ 2. धूर्त
✘ 3. समझदार
✘ 4. अनपढ़

Question ID : **4410091456954**
Option 1 ID : **4410095756115**
Option 2 ID : **4410095756118**
Option 3 ID : **4410095756117**
Option 4 ID : **4410095756116**

QuickSarkari.com | WhatsApp Channel | Telegram: t.me/quick_sarkari

Q.5 नीचे दिये गये वाक्य के किस भाग में त्रुटि है?
जीवन ओर साहित्य का घनिष्ठ संबंध है।4788

Ans
✔ 1. जीवन ओर
✘ 2. संबंध है
✘ 3. का घनिष्ठ
✘ 4. साहित्य

Question ID : **441009445068**
Option 1 ID : **4410091738953**
Option 2 ID : **4410091738956**
Option 3 ID : **4410091738955**
Option 4 ID : **4410091738954**

Q.6 निम्नलिखित वाक्य में रेखांकित शब्द का पर्यायवाची शब्द चुनिये
<u>तोता</u> बहुत प्यारा पक्षी होता है

Ans
✘ 1. कोकिला
✔ 2. शुक
✘ 3. तड़ाग
✘ 4. सुरभि

Question ID : **4410091489867**
Option 1 ID : **4410095885507**
Option 2 ID : **4410095885508**
Option 3 ID : **4410095885506**
Option 4 ID : **4410095885505**

Q.7 योग साधक ध्यान में पूरी तरह लीन रहता है।

वाक्य में प्रयुक्त लीन शब्द का पर्यायवाची क्या है?

Ans
✘ 1. उदधि
✘ 2. पराक्रम
✔ 3. अनुरक्त
✘ 4. पराश्रित

Question ID : **4410091455622**
Option 1 ID : **4410095750809**
Option 2 ID : **4410095750807**
Option 3 ID : **4410095750808**
Option 4 ID : **4410095750810**

QuickSarkari.com | WhatsApp Channel | Telegram: t.me/quick_sarkari

Q.8 कला का सृजन कलाकार की कल्पना का प्रतिफल है।

वाक्य में प्रयुक्त सृजन शब्द का विलोम क्या है।

Ans
✗ 1. निर्माण
✓ 2. संहार
✗ 3. सृष्टि
✗ 4. उत्पत्ति

Question ID : **4410091455288**
Option 1 ID : **4410095749446**
Option 2 ID : **4410095749447**
Option 3 ID : **4410095749448**
Option 4 ID : **4410095749445**

Q.9 निम्नलिखित वाक्य में रेखांकित शब्द का विलोम शब्द चुनिये-
महाभारत में अर्जुन युद्ध से <u>विमुख</u> हो गए थे

Ans
✗ 1. आरंभ
✗ 2. पलायन
✓ 3. उन्मुख
✗ 4. समापन

Question ID : **4410091489806**
Option 1 ID : **4410095885262**
Option 2 ID : **4410095885261**
Option 3 ID : **4410095885264**
Option 4 ID : **4410095885263**

Q.10 दिए गए वाक्य के किस भाग में त्रुटि है?
यात्रियों ने मध्याहन में एक विशाल वृक्ष की छाया में विश्राम किया।

Ans
✓ 1. मध्याहन
✗ 2. वृक्ष
✗ 3. यात्रियों
✗ 4. विश्राम

Question ID : **4410091456451**
Option 1 ID : **4410095754143**
Option 2 ID : **4410095754144**
Option 3 ID : **4410095754142**
Option 4 ID : **4410095754145**

QuickSarkari.com | WhatsApp Channel | Telegram: t.me/quick_sarkari

Comprehension:

नीचे दिए गए गद्यांश को पढ़कर निम्नलिखित पाँच प्रश्नों के उत्तर दिए गए विकल्पों में से चुनें।

राष्ट्र का तीसरा अंग जन की संस्कृति है। मनुष्यों ने युग-युगों में जिस सभ्यता का निर्माण किया है वही उसके जीवन की श्वास- प्रश्वास है। बिना संस्कृति के जन की कल्पना कबंधमात्र है; संस्कृति ही जन का मस्तिष्क है। संस्कृति के विकास और अभ्युदय के द्वारा ही राष्ट्र की वृद्धि संभव है। राष्ट्र के समग्र रूप में भूमि और जन के साथ-साथ जन की संस्कृति का महत्त्वपूर्ण स्थान है। यदि भूमि और जन अपनी संस्कृति से विरहित कर दिये जायें तो राष्ट्र का लोप समझना चाहिए। जीवन के विटप का पुष्प संस्कृति है। संस्कृति के सौन्दर्य और सौरभ में ही राष्ट्रीय जन के जीवन का सौन्दर्य और यश अंतर्निहित है। ज्ञान और कर्म दोनों के पारस्परिक प्रकाश की संज्ञा संस्कृति है। भूमि पर बसनेवाले जन ने ज्ञान के क्षेत्र में जो सोचा है और कर्म के क्षेत्र में जो रचा है, दोनों के रूप में हमें राष्ट्रीय संस्कृति के दर्शन मिलते हैं। जीवन के विकास की युक्ति ही संस्कृति के रूप में प्रकट होती है। प्रत्येक जाति अपनी-अपनी विशेषताओं के साथ इस युक्ति को निश्चित करती है और उससे प्रेरित संस्कृति का विकास करती है। इस दृष्टि से प्रत्येक जन की अपनी-अपनी भावना के अनुसार पृथक् पृथक् संस्कृतियाँ राष्ट्र में विकसित होती हैं, परन्तु उन सबका मूल आधार पारस्परिक सहिष्णुता और समन्वय पर निर्भर है।जंगल में जिस प्रकार अनेक लता, वृक्ष और वनस्पति अपने अदम्य भाव से उठते हुए पारस्परिक सम्मिलन से अविरोधी स्थिति प्राप्त करते हैं, उसी प्रकार राष्ट्रीय जन अपनी संस्कृतियों के द्वारा एक-दूसरे के साथ मिलकर राष्ट्र में रहते हैं। जिस प्रकार जल के अनेक प्रवाह नदियों के रूप में मिलकर समुद्र में एकरूपता प्राप्त करते हैं, उसी प्रकार राष्ट्रीय जीवन की अनेक विधियाँ राष्ट्रीय संस्कृति में समन्वय प्राप्त करती हैं। समन्वययुक्त जीवन ही राष्ट्र का सुखदायी रूप है।892

SubQuestion No : 11

Q.11 **नीचे दिए गए विकल्पों में से उपरोक्त गद्यांश का भाव पहचानें।** 893

Ans
✔ 1. राष्ट्र का सांस्कृतिक विकास
✘ 2. राष्ट्र का अधिकार
✘ 3. राष्ट्र के विभेद
✘ 4. राष्ट्र की समस्याएं

Question ID : **441009438467**
Option 1 ID : **4410091712775**
Option 2 ID : **4410091712774**
Option 3 ID : **4410091712776**
Option 4 ID : **4410091712777**

QuickSarkari

Comprehension:

नीचे दिए गए गद्यांश को पढ़कर निम्नलिखित पाँच प्रश्नों के उत्तर दिए गए विकल्पों में से चुनें।

राष्ट्र का तीसरा अंग जन की संस्कृति है। मनुष्यों ने युग-युगों में जिस सभ्यता का निर्माण किया है वही उसके जीवन की श्वास- प्रश्वास है। बिना संस्कृति के जन की कल्पना कबंधमात्र है; संस्कृति ही जन का मस्तिष्क है। संस्कृति के विकास और अभ्युदय के द्वारा ही राष्ट्र की वृद्धि संभव है। राष्ट्र के समग्र रूप में भूमि और जन के साथ-साथ जन की संस्कृति का महत्त्वपूर्ण स्थान है। यदि भूमि और जन अपनी संस्कृति से विरहित कर दिये जायें तो राष्ट्र का लोप समझना चाहिए। जीवन के विटप का पुष्प संस्कृति है। संस्कृति के सौन्दर्य और सौरभ में ही राष्ट्रीय जन के जीवन का सौन्दर्य और यश अंतर्निहित है। ज्ञान और कर्म दोनों के पारस्परिक प्रकाश की संज्ञा संस्कृति है। भूमि पर बसनेवाले जन ने ज्ञान के क्षेत्र में जो सोचा है और कर्म के क्षेत्र में जो रचा है, दोनों के रूप में हमें राष्ट्रीय संस्कृति के दर्शन मिलते हैं। जीवन के विकास की युक्ति ही संस्कृति के रूप में प्रकट होती है। प्रत्येक जाति अपनी-अपनी विशेषताओं के साथ इस युक्ति को निश्चित करती है और उससे प्रेरित संस्कृति का विकास करती है। इस दृष्टि से प्रत्येक जन की अपनी-अपनी भावना के अनुसार पृथक् पृथक् संस्कृतियाँ राष्ट्र में विकसित होती हैं, परन्तु उन सबका मूल आधार पारस्परिक सहिष्णुता और समन्वय पर निर्भर है।जंगल में जिस प्रकार अनेक लता, वृक्ष और वनस्पति अपने अदम्य भाव से उठते हुए पारस्परिक सम्मिलन से अविरोधी स्थिति प्राप्त करते हैं, उसी प्रकार राष्ट्रीय जन अपनी संस्कृतियों के द्वारा एक-दूसरे के साथ मिलकर राष्ट्र में रहते हैं। जिस प्रकार जल के अनेक प्रवाह नदियों के रूप में मिलकर समुद्र में एकरूपता प्राप्त करते हैं, उसी प्रकार राष्ट्रीय जीवन की अनेक विधियाँ राष्ट्रीय संस्कृति में समन्वय प्राप्त करती हैं। समन्वययुक्त जीवन ही राष्ट्र का सुखदायी रूप है।892

SubQuestion No : 12

Q.12 **नीचे दिए गए विकल्पों में से उपरोक्त गद्यांश का मुख्य विषय पहचानें ।** 894

Ans
✗ 1. संस्कृति विरोध
✗ 2. राष्ट्रीय विभेद
✓ 3. राष्ट्र और संस्कृति
✗ 4. सभ्यता का संकट

Question ID : **441009438468**
Option 1 ID : **4410091712778**
Option 2 ID : **4410091712781**
Option 3 ID : **4410091712780**
Option 4 ID : **4410091712779**

QuickSarkari

Comprehension:

नीचे दिए गए गद्यांश को पढ़कर निम्नलिखित पाँच प्रश्नों के उत्तर दिए गए विकल्पों में से चुनें।

राष्ट्र का तीसरा अंग जन की संस्कृति है। मनुष्यों ने युग-युगों में जिस सभ्यता का निर्माण किया है वही उसके जीवन की श्वास- प्रश्वास है। बिना संस्कृति के जन की कल्पना कबंधमात्र है; संस्कृति ही जन का मस्तिष्क है। संस्कृति के विकास और अभ्युदय के द्वारा ही राष्ट्र की वृद्धि संभव है। राष्ट्र के समग्र रूप में भूमि और जन के साथ-साथ जन की संस्कृति का महत्त्वपूर्ण स्थान है। यदि भूमि और जन अपनी संस्कृति से विरहित कर दिये जायें तो राष्ट्र का लोप समझना चाहिए। जीवन के विटप का पुष्प संस्कृति है। संस्कृति के सौन्दर्य और सौरभ में ही राष्ट्रीय जन के जीवन का सौन्दर्य और यश अंतर्निहित है। ज्ञान और कर्म दोनों के पारस्परिक प्रकाश की संज्ञा संस्कृति है। भूमि पर बसनेवाले जन ने ज्ञान के क्षेत्र में जो सोचा है और कर्म के क्षेत्र में जो रचा है, दोनों के रूप में हमें राष्ट्रीय संस्कृति के दर्शन मिलते हैं। जीवन के विकास की युक्ति ही संस्कृति के रूप में प्रकट होती है। प्रत्येक जाति अपनी-अपनी विशेषताओं के साथ इस युक्ति को निश्चित करती है और उससे प्रेरित संस्कृति का विकास करती है। इस दृष्टि से प्रत्येक जन की अपनी-अपनी भावना के अनुसार पृथक् पृथक् संस्कृतियाँ राष्ट्र में विकसित होती हैं, परन्तु उन सबका मूल आधार पारस्परिक सहिष्णुता और समन्वय पर निर्भर है।जंगल में जिस प्रकार अनेक लता, वृक्ष और वनस्पति अपने अदम्य भाव से उठते हुए पारस्परिक सम्मिलन से अविरोधी स्थिति प्राप्त करते हैं, उसी प्रकार राष्ट्रीय जन अपनी संस्कृतियों के द्वारा एक-दूसरे के साथ मिलकर राष्ट्र में रहते हैं। जिस प्रकार जल के अनेक प्रवाह नदियों के रूप में मिलकर समुद्र में एकरूपता प्राप्त करते हैं, उसी प्रकार राष्ट्रीय जीवन की अनेक विधियाँ राष्ट्रीय संस्कृति में समन्वय प्राप्त करती हैं। समन्वययुक्त जीवन ही राष्ट्र का सुखदायी रूप है।892

SubQuestion No : 13

Q.13 **नीचे दिए गए विकल्पों में से उपरोक्त गद्यांश के तथ्य पहचानें।** 895

Ans
✗ 1. गद्यांश में तथ्य यह है कि राजनीतिक स्वार्थ पूर्ति संस्कृति है।

✓ 2. गद्यांश में तथ्य यह है कि ज्ञान और कर्म दोनों के पारस्परिक प्रकाश की संज्ञा संस्कृति है।

✗ 3. गद्यांश में तथ्य यह है कि समन्वययुक्त जीवन से राष्ट्र सुखी नहीं होता।

✗ 4. गद्यांश में तथ्य यह है कि आत्मवालोकन ही संस्कृति है।

Question ID : **441009438469**
Option 1 ID : **4410091712783**
Option 2 ID : **4410091712782**
Option 3 ID : **4410091712785**
Option 4 ID : **4410091712784**

QuickSarkari

Comprehension:

नीचे दिए गए गद्यांश को पढ़कर निम्नलिखित पाँच प्रश्नों के उत्तर दिए गए विकल्पों में से चुनें।

राष्ट्र का तीसरा अंग जन की संस्कृति है। मनुष्यों ने युग-युगों में जिस सभ्यता का निर्माण किया है वही उसके जीवन की श्वास- प्रश्वास है। बिना संस्कृति के जन की कल्पना कबंधमात्र है; संस्कृति ही जन का मस्तिष्क है। संस्कृति के विकास और अभ्युदय के द्वारा ही राष्ट्र की वृद्धि संभव है। राष्ट्र के समग्र रूप में भूमि और जन के साथ-साथ जन की संस्कृति का महत्त्वपूर्ण स्थान है। यदि भूमि और जन अपनी संस्कृति से विरहित कर दिये जायें तो राष्ट्र का लोप समझना चाहिए। जीवन के विटप का पुष्प संस्कृति है। संस्कृति के सौन्दर्य और सौरभ में ही राष्ट्रीय जन के जीवन का सौन्दर्य और यश अंतर्निहित है। ज्ञान और कर्म दोनों के पारस्परिक प्रकाश की संज्ञा संस्कृति है। भूमि पर बसनेवाले जन ने ज्ञान के क्षेत्र में जो सोचा है और कर्म के क्षेत्र में जो रचा है, दोनों के रूप में हमें राष्ट्रीय संस्कृति के दर्शन मिलते हैं। जीवन के विकास की युक्ति ही संस्कृति के रूप में प्रकट होती है। प्रत्येक जाति अपनी-अपनी विशेषताओं के साथ इस युक्ति को निश्चित करती है और उससे प्रेरित संस्कृति का विकास करती है। इस दृष्टि से प्रत्येक जन की अपनी-अपनी भावना के अनुसार पृथक् पृथक् संस्कृतियाँ राष्ट्र में विकसित होती हैं, परन्तु उन सबका मूल आधार पारस्परिक सहिष्णुता और समन्वय पर निर्भर है।जंगल में जिस प्रकार अनेक लता, वृक्ष और वनस्पति अपने अदम्य भाव से उठते हुए पारस्परिक सम्मिलन से अविरोधी स्थिति प्राप्त करते हैं, उसी प्रकार राष्ट्रीय जन अपनी संस्कृतियों के द्वारा एक-दूसरे के साथ मिलकर राष्ट्र में रहते हैं। जिस प्रकार जल के अनेक प्रवाह नदियों के रूप में मिलकर समुद्र में एकरूपता प्राप्त करते हैं, उसी प्रकार राष्ट्रीय जीवन की अनेक विधियाँ राष्ट्रीय संस्कृति में समन्वय प्राप्त करती हैं। समन्वययुक्त जीवन ही राष्ट्र का सुखदायी रूप है।892

SubQuestion No : 14

Q.14 **नीचे दिए गए विकल्पों में से प्रकाश का विलोम शब्द चुनें।**896

Ans
✗ 1. ज्वाला
✓ 2. अंधकार
✗ 3. प्रकाशित
✗ 4. जुगनू

Question ID : **441009438470**
Option 1 ID : **4410091712789**
Option 2 ID : **4410091712787**
Option 3 ID : **4410091712786**
Option 4 ID : **4410091712788**

QuickSarkari

Comprehension:

नीचे दिए गए गद्यांश को पढ़कर निम्नलिखित पाँच प्रश्नों के उत्तर दिए गए विकल्पों में से चुनें।

राष्ट्र का तीसरा अंग जन की संस्कृति है। मनुष्यों ने युग-युगों में जिस सभ्यता का निर्माण किया है वही उसके जीवन की श्वास- प्रश्वास है। बिना संस्कृति के जन की कल्पना कबंधमात्र है; संस्कृति ही जन का मस्तिष्क है। संस्कृति के विकास और अभ्युदय के द्वारा ही राष्ट्र की वृद्धि संभव है। राष्ट्र के समग्र रूप में भूमि और जन के साथ-साथ जन की संस्कृति का महत्त्वपूर्ण स्थान है। यदि भूमि और जन अपनी संस्कृति से विरहित कर दिये जायें तो राष्ट्र का लोप समझना चाहिए। जीवन के विटप का पुष्प संस्कृति है। संस्कृति के सौन्दर्य और सौरभ में ही राष्ट्रीय जन के जीवन का सौन्दर्य और यश अंतर्निहित है। ज्ञान और कर्म दोनों के पारस्परिक प्रकाश की संज्ञा संस्कृति है। भूमि पर बसनेवाले जन ने ज्ञान के क्षेत्र में जो सोचा है और कर्म के क्षेत्र में जो रचा है, दोनों के रूप में हमें राष्ट्रीय संस्कृति के दर्शन मिलते हैं। जीवन के विकास की युक्ति ही संस्कृति के रूप में प्रकट होती है। प्रत्येक जाति अपनी-अपनी विशेषताओं के साथ इस युक्ति को निश्चित करती है और उससे प्रेरित संस्कृति का विकास करती है। इस दृष्टि से प्रत्येक जन की अपनी-अपनी भावना के अनुसार पृथक् पृथक् संस्कृतियाँ राष्ट्र में विकसित होती हैं, परन्तु उन सबका मूल आधार पारस्परिक सहिष्णुता और समन्वय पर निर्भर है।जंगल में जिस प्रकार अनेक लता, वृक्ष और वनस्पति अपने अदम्य भाव से उठते हुए पारस्परिक सम्मिलन से अविरोधी स्थिति प्राप्त करते हैं, उसी प्रकार राष्ट्रीय जन अपनी संस्कृतियों के द्वारा एक-दूसरे के साथ मिलकर राष्ट्र में रहते हैं। जिस प्रकार जल के अनेक प्रवाह नदियों के रूप में मिलकर समुद्र में एकरूपता प्राप्त करते हैं, उसी प्रकार राष्ट्रीय जीवन की अनेक विधियाँ राष्ट्रीय संस्कृति में समन्वय प्राप्त करती हैं। समन्वययुक्त जीवन ही राष्ट्र का सुखदायी रूप है।892

SubQuestion No : 15

Q.15 **नीचे दिए गए विकल्पों में से समन्वय का शब्दार्थ चुनें।** 897

Ans
✗ 1. संबंध तोड़ना

✗ 2. स्वार्थ के वशीभूत होना

✓ 3. समान रूप से मिलना

✗ 4. बिखराव की स्थिति में जाना

Question ID : **441009438471**
Option 1 ID : **4410091712791**
Option 2 ID : **4410091712792**
Option 3 ID : **4410091712793**
Option 4 ID : **4410091712790**

QuickSarkari

Comprehension:

प्रस्तुत गद्यांश को पढ़कर नीचे दिए गए प्रश्नों के उत्तर दें ।

कहते हैं, और ठीक ही कहते होंगे, कि मनुष्य से भिन्न अवर सृष्टि में भी इंद्रियगृहीत बिंब किसी-न-किसी रूप में रहते हैं, पर वहाँ दो बातों की कमी है। इन बिंबों को विविक्त करने की शक्ति और विविक्तीकृत बिंबों को अपनी इच्छा से संकल्प पूर्वक नए सिरे से नए प्रसार-विस्तार या परम्युटेशन कॉम्बिनेशन की प्रक्रिया द्वारा नई अर्थात् प्रकृति प्रदत्त वस्तुओं से भिन्न सारी चीज बनाने की क्षमता। शब्द के बिंबों के विविक्तीकरण का परिणाम भाषा, काव्य और संगीत हैं, रूप बिंबों के विविक्तीकरण के फल रंग, उच्चावचता, ह्रस्व-दीर्घ वर्तुल आदि बिंब और फिर संकल्पशक्ति द्वारा विनियुक्त होने पर चित्र, मूर्ति, वास्तु, वस्त्र, अलंकरण, साज-सज्जा आदि। इसी तरह और भी इंद्रियगृहीत बिंबों का विविक्तीकरण, और संकल्प संयोजन से मानव सृष्ट सहस्रो नई चीजें। यह कोई मामूली बात नहीं है। अभ्यास के कारण इनका महत्व भुला दिया जाता है। पर भुलाना चाहिए नहीं। मनुष्य कुछ भुलक्कड़ हो गया है। लेकिन यह बहुत बड़ा दोष भी नहीं है। न भूले तो जीना ही दूभर हो जाए। मगर ऐसी बातों का भूलना जरूर बुरा है, जो उसे जीने की शक्ति देती हैं, सीधे खड़ा होने की प्रेरणा देती हैं।किस दिन एक शुभ मुहूर्त में मनुष्य ने मिट्टी के दीये, रुई की बाती, चकमक की चिनगारी और बीजों से निकलनेवाले स्रोत का संयोग देखा। अंधकार को जीता जा सकता है। दिया जलाया जा सकता है। घने अंधकार में डूबी धरती को आंशिक रूप में आलोकित किया जा सकता है।

SubQuestion No : 16

Q.16 **दिए गए विकल्पों में से गद्यांश के लिए उपयुक्त शीर्षक का चुनाव कीजिए।**

Ans
✔ 1. मनुष्य और उसकी निर्मिति: एक चेतस अन्वेषण

✘ 2. प्रकृति का अंत: विज्ञान

✘ 3. बिंब से साहित्य सृजन

✘ 4. अंधकार में दीप्ति : एक विचार यात्रा

Question ID : **441009334822**
Option 1 ID : **4410091305241**
Option 2 ID : **4410091305239**
Option 3 ID : **4410091305238**
Option 4 ID : **4410091305240**

QuickSarkari

Comprehension:

प्रस्तुत गद्यांश को पढ़कर नीचे दिए गए प्रश्नों के उत्तर दें ।

कहते हैं, और ठीक ही कहते होंगे, कि मनुष्य से भिन्न अवर सृष्टि में भी इंद्रियगृहीत बिंब किसी-न-किसी रूप में रहते हैं, पर वहाँ दो बातों की कमी है। इन बिंबों को विविक्त करने की शक्ति और विविक्तीकृत बिंबों को अपनी इच्छा से संकल्प पूर्वक नए सिरे से नए प्रसार-विस्तार या परम्युटेशन कॉम्बिनेशन की प्रक्रिया द्वारा नई अर्थात् प्रकृति प्रदत्त वस्तुओं से भिन्न सारी चीज बनाने की क्षमता। शब्द के बिंबों के विविक्तीकरण का परिणाम भाषा, काव्य और संगीत हैं, रूप बिंबों के विविक्तीकरण के फल रंग, उच्चावचता, हस्व-दीर्घ वर्तुल आदि बिंब और फिर संकल्पशक्ति द्वारा विनियुक्त होने पर चित्र, मूर्ति, वास्तु, वस्त्र, अलंकरण, साज-सज्जा आदि। इसी तरह और भी इंद्रियगृहीत बिंबों का विविक्तीकरण, और संकल्प संयोजन से मानव सृष्ट सहस्रो नई चीजें। यह कोई मामूली बात नहीं है। अभ्यास के कारण इनका महत्व भुला दिया जाता है। पर भुलाना चाहिए नहीं। मनुष्य कुछ भुलक्कड़ हो गया है। लेकिन यह बहुत बड़ा दोष भी नहीं है। न भूले तो जीना ही दूभर हो जाए। मगर ऐसी बातों का भूलना जरूर बुरा है, जो उसे जीने की शक्ति देती हैं, सीधे खड़ा होने की प्रेरणा देती हैं।किस दिन एक शुभ मुहूर्त में मनुष्य ने मिट्टी के दीये, रुई की बाती, चकमक की चिनगारी और बीजों से निकलनेवाले स्रोत का संयोग देखा। अंधकार को जीता जा सकता है। दिया जलाया जा सकता है। घने अंधकार में डूबी धरती को आंशिक रूप में आलोकित किया जा सकता है।

SubQuestion No : 17

Q.17 **दिए गए विकल्पों में से प्रस्तुत गद्यांश में प्रयुक्त 'विविक्तिकरण' शब्द का अर्थ का चुनाव कीजिए ।**

Ans
✗ 1. अनुभूतियों को यथावत ग्रहण करना

✗ 2. पुनः स्मरण करना

✓ 3. स्पष्ट रूप से पहचानकर अलग करना

✗ 4. तुलना करना

Question ID : **441009334823**
Option 1 ID : **4410091305242**
Option 2 ID : **4410091305243**
Option 3 ID : **4410091305244**
Option 4 ID : **4410091305245**

QuickSarkari

Comprehension:

प्रस्तुत गद्यांश को पढ़कर नीचे दिए गए प्रश्नों के उत्तर दें ।

कहते हैं, और ठीक ही कहते होंगे, कि मनुष्य से भिन्न अवर सृष्टि में भी इंद्रियगृहीत बिंब किसी-न-किसी रूप में रहते हैं, पर वहाँ दो बातों की कमी है। इन बिंबों को विविक्त करने की शक्ति और विविक्तीकृत बिंबों को अपनी इच्छा से संकल्प पूर्वक नए सिरे से नए प्रसार-विस्तार या परम्युटेशन कॉम्बिनेशन की प्रक्रिया द्वारा नई अर्थात् प्रकृति प्रदत्त वस्तुओं से भिन्न सारी चीज बनाने की क्षमता। शब्द के बिंबों के विविक्तीकरण का परिणाम भाषा, काव्य और संगीत हैं, रूप बिंबों के विविक्तीकरण के फल रंग, उच्चावचता, ह्रस्व-दीर्घ वर्तुल आदि बिंब और फिर संकल्पशक्ति द्वारा विनियुक्त होने पर चित्र, मूर्ति, वास्तु, वस्त्र, अलंकरण, साज-सज्जा आदि। इसी तरह और भी इंद्रियगृहीत बिंबों का विविक्तीकरण, और संकल्प संयोजन से मानव सृष्ट सहस्रो नई चीजें। यह कोई मामूली बात नहीं है। अभ्यास के कारण इनका महत्व भुला दिया जाता है। पर भुलाना चाहिए नहीं। मनुष्य कुछ भुलक्कड़ हो गया है। लेकिन यह बहुत बड़ा दोष भी नहीं है। न भूले तो जीना ही दूभर हो जाए। मगर ऐसी बातों का भूलना जरूर बुरा है, जो उसे जीने की शक्ति देती हैं, सीधे खड़ा होने की प्रेरणा देती हैं।किस दिन एक शुभ मुहूर्त में मनुष्य ने मिट्टी के दीये, रुई की बाती, चकमक की चिनगारी और बीजों से निकलनेवाले स्रोत का संयोग देखा। अंधकार को जीता जा सकता है। दिया जलाया जा सकता है। घने अंधकार में डूबी धरती को आंशिक रूप में आलोकित किया जा सकता है।

SubQuestion No : 18

Q.18 **लेखक के अनुसार मनुष्य की कौन-सी प्रवृत्ति खतरनाक नहीं मानी गई है, यद्यपि वह दोष है?**

Ans
✗ 1. कल्पना करना
✓ 2. भूल जाना
✗ 3. अंधकार से डरना
✗ 4. संकल्प करना

Question ID : **441009334824**
Option 1 ID : **4410091305246**
Option 2 ID : **4410091305247**
Option 3 ID : **4410091305249**
Option 4 ID : **4410091305248**

QuickSarkari

Comprehension:

प्रस्तुत गद्यांश को पढ़कर नीचे दिए गए प्रश्नों के उत्तर दें ।

कहते हैं, और ठीक ही कहते होंगे, कि मनुष्य से भिन्न अवर सृष्टि में भी इंद्रियगृहीत बिंब किसी-न-किसी रूप में रहते हैं, पर वहाँ दो बातों की कमी है। इन बिंबों को विविक्त करने की शक्ति और विविक्तीकृत बिंबों को अपनी इच्छा से संकल्प पूर्वक नए सिरे से नए प्रसार-विस्तार या परम्युटेशन कॉम्बिनेशन की प्रक्रिया द्वारा नई अर्थात् प्रकृति प्रदत्त वस्तुओं से भिन्न सारी चीज बनाने की क्षमता। शब्द के बिंबों के विविक्तीकरण का परिणाम भाषा, काव्य और संगीत हैं, रूप बिंबों के विविक्तीकरण के फल रंग, उच्चावचता, हस्व-दीर्घ वर्तुल आदि बिंब और फिर संकल्पशक्ति द्वारा विनियुक्त होने पर चित्र, मूर्ति, वास्तु, वस्त्र, अलंकरण, साज-सज्जा आदि। इसी तरह और भी इंद्रियगृहीत बिंबों का विविक्तीकरण, और संकल्प संयोजन से मानव सृष्ट सहस्रो नई चीजें। यह कोई मामूली बात नहीं है। अभ्यास के कारण इनका महत्व भुला दिया जाता है। पर भुलाना चाहिए नहीं। मनुष्य कुछ भुलक्कड़ हो गया है। लेकिन यह बहुत बड़ा दोष भी नहीं है। न भूले तो जीना ही दूभर हो जाए। मगर ऐसी बातों का भूलना जरूर बुरा है, जो उसे जीने की शक्ति देती हैं, सीधे खड़ा होने की प्रेरणा देती हैं।किस दिन एक शुभ मुहूर्त में मनुष्य ने मिट्टी के दीये, रुई की बाती, चकमक की चिनगारी और बीजों से निकलनेवाले स्रोत का संयोग देखा। अंधकार को जीता जा सकता है। दिया जलाया जा सकता है। घने अंधकार में डूबी धरती को आंशिक रूप में आलोकित किया जा सकता है।

SubQuestion No : 19

Q.19 **गद्यांश में लेखक द्वारा मनुष्य के 'संकल्पपूर्वक संयोजन' की बात करते हुए किन क्षमताओं को उसकी रचनात्मक विशिष्टता के रूप में स्थापित किया गया है?**

Ans
✗ 1. स्मृति और अनुभूति की क्षमता

✓ 2. बिंबों को ग्रहण कर उन्हें नवीन संरचना में ढालने की शक्ति

✗ 3. परंपरा और आधुनिकता के बीच संतुलन साधने की योग्यता

✗ 4. प्रकृति के नियमों को पहचानने की क्षमता

Question ID : **441009334825**
Option 1 ID : **4410091305250**
Option 2 ID : **4410091305251**
Option 3 ID : **4410091305253**
Option 4 ID : **4410091305252**

QuickSarkari

Comprehension:

प्रस्तुत गद्यांश को पढ़कर नीचे दिए गए प्रश्नों के उत्तर दें ।
कहते हैं, और ठीक ही कहते होंगे, कि मनुष्य से भिन्न अवर सृष्टि में भी इंद्रियगृहीत बिंब किसी-न-किसी रूप में रहते हैं, पर वहाँ दो बातों की कमी है। इन बिंबों को विविक्त करने की शक्ति और विविक्तीकृत बिंबों को अपनी इच्छा से संकल्प पूर्वक नए सिरे से नए प्रसार-विस्तार या परम्युटेशन कॉम्बिनेशन की प्रक्रिया द्वारा नई अर्थात् प्रकृति प्रदत्त वस्तुओं से भिन्न सारी चीज बनाने की क्षमता। शब्द के बिंबों के विविक्तीकरण का परिणाम भाषा, काव्य और संगीत हैं, रूप बिंबों के विविक्तीकरण के फल रंग, उच्चावचता, ह्रस्व-दीर्घ वर्तुल आदि बिंब और फिर संकल्पशक्ति द्वारा विनियुक्त होने पर चित्र, मूर्ति, वास्तु, वस्त्र, अलंकरण, साज-सज्जा आदि। इसी तरह और भी इंद्रियगृहीत बिंबों का विविक्तीकरण, और संकल्प संयोजन से मानव सृष्ट सहस्रो नई चीजें। यह कोई मामूली बात नहीं है। अभ्यास के कारण इनका महत्व भुला दिया जाता है। पर भुलाना चाहिए नहीं। मनुष्य कुछ भुलक्कड़ हो गया है। लेकिन यह बहुत बड़ा दोष भी नहीं है। न भूले तो जीना ही दूभर हो जाए। मगर ऐसी बातों का भूलना जरूर बुरा है, जो उसे जीने की शक्ति देती हैं, सीधे खड़ा होने की प्रेरणा देती हैं।किस दिन एक शुभ मुहूर्त में मनुष्य ने मिट्टी के दीये, रुई की बाती, चकमक की चिनगारी और बीजों से निकलनेवाले स्रोत का संयोग देखा। अंधकार को जीता जा सकता है। दिया जलाया जा सकता है। घने अंधकार में डूबी धरती को आंशिक रूप में आलोकित किया जा सकता है।

SubQuestion No : 20

Q.20 **दिए गए विकल्पों में से प्रस्तुत गद्यांश के सारांश का चुनाव कीजिए ।**

Ans
✗ 1. मनुष्य ने प्रकृति से प्रेरित होकर विज्ञान और कला में महत्वपूर्ण विकास किए हैं।

✗ 2. मनुष्य का निरंतर अभ्यास उसे अपनी शक्तियों को पहचानने में मदद करता है।

✗ 3. मनुष्य ने अपनी इच्छाशक्ति से अंधकार को पराजित किया और प्रकाश उत्पन्न किया।

✓ 4. मनुष्य की संकल्पशक्ति ने उसे प्रकृति प्रदत्त बिंबों से भिन्न नई वस्तुएं बनाने की क्षमता दी है।

Question ID : **441009334826**
Option 1 ID : **4410091305254**
Option 2 ID : **4410091305256**
Option 3 ID : **4410091305257**
Option 4 ID : **4410091305255**

Section : **Test of English Language and Comprehension**

Q.1 **Choose the correct passive voice form of the given sentence.**

The senior archivist might have cautiously restored the fragile historical manuscript during the specialised preservation workshop session held last weekend.

Ans
✗ 1. The fragile historical manuscript was restored by the senior archivist during the specialised preservation workshop session held last weekend.

✓ 2. The fragile historical manuscript might have been restored by the senior archivist during the specialised preservation workshop session held last weekend.

✗ 3. The fragile historical manuscript might be restored by the senior archivist during the specialised preservation workshop session held last weekend.

✗ 4. The fragile historical manuscript might have restored by the senior archivist during the specialised preservation workshop session held last weekend.

Question ID : **4410091541009**
Option 1 ID : **4410096087270**
Option 2 ID : **4410096087269**
Option 3 ID : **4410096087267**
Option 4 ID : **4410096087268**

Q.2 Choose the most appropriate option to complete the indirect speech of the sentence.

Jimmy said to me, 'Who do you think is going to win the competition this time?"
Jimmy asked me _____ to win the competition _____.

Ans
✗ 1. who I think is going / that time
✗ 2. who did I think was going / this time
✗ 3. who I thought is going / this time
✓ 4. who I thought was going / that time

Question ID : **4410091511645**
Option 1 ID : **4410095970653**
Option 2 ID : **4410095970655**
Option 3 ID : **4410095970656**
Option 4 ID : **4410095970654**

Q.3 Choose the most suitable option to complete the sentence.

_____ the surface lay a hidden treasure that no one in the family had ever been aware of.

Ans
✓ 1. Beneath
✗ 2. Amid
✗ 3. Beyond
✗ 4. Among

Question ID : **4410091510161**
Option 1 ID : **4410095965173**
Option 2 ID : **4410095965172**
Option 3 ID : **4410095965174**
Option 4 ID : **4410095965175**

Q.4 Select the most appropriate option to fill in the blank.
The injured boy _____ before the nurse reaches the hospital.

Ans
✗ 1. is dying in pain
✗ 2. has died in pain
✓ 3. will have died in pain
✗ 4. had been died in pain

Question ID : **4410091511476**
Option 1 ID : **4410095969950**
Option 2 ID : **4410095969952**
Option 3 ID : **4410095969951**
Option 4 ID : **4410095969949**

QuickSarkari.com | WhatsApp Channel | Telegram: t.me/quick_sarkari

Q.5 In the given question, a statement divided into different segments is given. Rearrange all the segments to form a coherent statement.

loomed in the distance (P)/ their snow-capped peaks (Q)/ glistening in the sunlight(R)/ the majestic mountains (S)/

Ans
1. PQRS
2. SPQR
3. PRSQ
4. QSRP

Question ID : **441009430931**
Option 1 ID : **4410091683244**
Option 2 ID : **4410091683242**
Option 3 ID : **4410091683243**
Option 4 ID : **4410091683245**

Q.6 Out of the four alternatives, choose the one that can be used as a substitute for the bracketed word segment.
The sudden drop in temperature was (a sign or foreshadowing of an event to come) of a very cold winter.

Ans
1. Harbinger
2. Precursor
3. Follower
4. Postscript

Question ID : **4410091456834**
Option 1 ID : **4410095755642**
Option 2 ID : **4410095755643**
Option 3 ID : **4410095755644**
Option 4 ID : **4410095755645**

Q.7 Complete the given sentence by choosing the correct direct speech format from the options.

The principal said, _____

Ans
1. "The annual seminar will be conducted in hybrid mode to ensure greater participation."
2. "The annual seminar would be conducted in hybrid mode to ensure greater participation."
3. "The annual seminar is conducted in hybrid mode to ensure greater participation."
4. "The annual seminar has been conducted in hybrid mode to ensure greater participation."

Question ID : **4410091501842**
Option 1 ID : **4410095931774**
Option 2 ID : **4410095931772**
Option 3 ID : **4410095931773**
Option 4 ID : **4410095931775**

QuickSarkari.com | WhatsApp Channel | Telegram: t.me/quick_sarkari

Q.8 In the given question, a statement divided into different segments is given.
Rearrange all the segments to form a coherent statement.
the aroma of freshly brewed coffee (P)/ buzzed with the chatter of patrons (Q)/
wafting through the air (R)/ the bustling café (S)/

Ans
✗ 1. PQRS
✓ 2. SQPR
✗ 3. RSQP
✗ 4. PQSR

Question ID : **441009430932**
Option 1 ID : **4410091683248**
Option 2 ID : **4410091683246**
Option 3 ID : **4410091683249**
Option 4 ID : **4410091683247**

Q.9 Choose the correct form of active voice for the following sentence from the options.
The new policy was announced by the manager during the staff meeting yesterday morning.

Ans
✗ 1. The manager has announced the new policy during the staff meeting yesterday morning.
✓ 2. The manager announced the new policy during the staff meeting yesterday morning.
✗ 3. The manager had announced the new policy during the staff meeting yesterday morning.
✗ 4. The manager will announce the new policy during the staff meeting yesterday morning.

Question ID : **4410091516653**
Option 1 ID : **4410095990020**
Option 2 ID : **4410095990018**
Option 3 ID : **4410095990019**
Option 4 ID : **4410095990017**

Q.10 Select the most appropriate option to fill in the blanks.
The architect worked _____severe constraints and produced a salient design ____ intense criticism.

Ans
✗ 1. on, by
✗ 2. between, along with
✓ 3. notwithstanding, amidst
✗ 4. among, with

Question ID : **4410091516415**
Option 1 ID : **4410095989072**
Option 2 ID : **4410095989070**
Option 3 ID : **4410095989069**
Option 4 ID : **4410095989071**

QuickSarkari.com | WhatsApp Channel | Telegram: t.me/quick_sarkari

Q.11 Complete the following sentence by choosing the correct option.

She took ___ first train to ___ station, knowing everyone understood exactly which one today.

Ans
✗ 1. the, an
✗ 2. a, the
✓ 3. the, the
✗ 4. the, a

Question ID : **4410091516278**
Option 1 ID : **4410095988500**
Option 2 ID : **4410095988497**
Option 3 ID : **4410095988499**
Option 4 ID : **4410095988498**

Q.12 Substitute one word for the given underlined segment by choosing from the following options.
Endless meetings and constant micromanagement seemed to <u>suck out the vitality and passion.</u>

Ans
✗ 1. covet
✗ 2. deflect
✗ 3. expatiate
✓ 4. desiccate

Question ID : **4410091516730**
Option 1 ID : **4410095990321**
Option 2 ID : **4410095990322**
Option 3 ID : **4410095990323**
Option 4 ID : **4410095990324**

Q.13 Complete the following sentence with the most appropriate option.
There is ..... traffic on the road today because of the holiday.

Ans
✗ 1. several
✗ 2. few
✗ 3. many
✓ 4. little

Question ID : **4410091456511**
Option 1 ID : **4410095754381**
Option 2 ID : **4410095754378**
Option 3 ID : **4410095754379**
Option 4 ID : **4410095754380**

QuickSarkari.com | WhatsApp Channel | Telegram: t.me/quick_sarkari

Q.14 In the following question, you are required to fill in the blanks by choosing the option that best completes the sentence.

While discussing the classification of elements in material science, the professor emphasized that although iron is ___ hard metal widely used in construction for its tensile strength, silver remains ___ semi-precious metal valued primarily for its conductivity and ornamental appeal.

Ans
✔ 1. a , a
✘ 2. an , an
✘ 3. an , a
✘ 4. a , an

Question ID : **4410091528968**
Option 1 ID : **4410096039005**
Option 2 ID : **4410096039006**
Option 3 ID : **4410096039004**
Option 4 ID : **4410096039003**

Q.15 Choose the most appropriate option to fill in the blank.

He _____ search for his missing bag after the _____.

Ans
✘ 1. comes to / gates closed
✘ 2. is coming to / gates have closed
✔ 3. came to / gates had closed
✘ 4. had come to / gates were closed

Question ID : **4410091511509**
Option 1 ID : **4410095970090**
Option 2 ID : **4410095970092**
Option 3 ID : **4410095970089**
Option 4 ID : **4410095970091**

Q.16 Select the correct one-word substitution for a person who is habitually dissatisfied, perpetually discontented, and rarely happy with what he has, regardless of the circumstances.

Ans
✘ 1. Apostate
✘ 2. Conformist
✔ 3. Malcontent
✘ 4. Melophile

Question ID : **4410091527853**
Option 1 ID : **4410096034614**
Option 2 ID : **4410096034611**
Option 3 ID : **4410096034612**
Option 4 ID : **4410096034613**

QuickSarkari.com | WhatsApp Channel | Telegram: t.me/quick_sarkari

Q.17 **In the given question, a statement divided into different segments is given. The first segment is fixed, rearrange the other segments to form a coherent statement.**

The economic valuation of/ is becoming a key consideration (A)/ in policy-making and land-use planning (B)/ ecosystem services provided by forests, such as (C)/ water purification, soil stabilization, and climate regulation (D)/

Ans
- ✔ 1. CDAB
- ✘ 2. DABC
- ✘ 3. BACD
- ✘ 4. ADCB

Question ID : **4410091689948**
Option 1 ID : **4410091689948**
Option 2 ID : **4410091689949**
Option 3 ID : **4410091689946**
Option 4 ID : **4410091689947**

Q.18 In the given question a statement is divided into different segments. The first is fixed, rearrange the other segments to form a meaningful sentence.
I would prefer (Fixed) / to pursue my studies with disciplined earnestness (A) / to devote myself diligently to serious academic engagement (B) / on frivolous and intellectually barren conversations (C) / rather than (D)

Ans
- ✔ 1. I would prefer / B–D–A–C
- ✘ 2. I would prefer / B–A–D–C
- ✘ 3. I would prefer / D–B–A–C
- ✘ 4. I would prefer / A–B–C–D

Question ID : **4410091565321**
Option 1 ID : **4410096182776**
Option 2 ID : **4410096182777**
Option 3 ID : **4410096182775**
Option 4 ID : **4410096182778**

QuickSarkari.com | WhatsApp Channel | Telegram: t.me/quick_sarkari

Q.19 Choose the most appropriate option to complete the sentence.

Despite working hard day and night, the man was _____ by the constant blame he endured at work.

Ans
✗ 1. galvanized
✓ 2. distraught
✗ 3. invigorated
✗ 4. complacent

Question ID : **4410091510063**
Option 1 ID : **4410095964923**
Option 2 ID : **4410095964921**
Option 3 ID : **4410095964920**
Option 4 ID : **4410095964922**

Q.20 Select the most appropriate option that can substitute the underlined words in the given sentence.
He was removed from the project for his unjustified and deliberate refusal to obey authority.

Ans
✗ 1. indiscipline
✗ 2. rebellion
✓ 3. contumacy
✗ 4. insolence

Question ID : **4410091502701**
Option 1 ID : **4410095935106**
Option 2 ID : **4410095935105**
Option 3 ID : **4410095935107**
Option 4 ID : **4410095935104**

Section : **Test of English Language and Comprehension1**

Q.1 Choose the most appropriate antonym of the underlined word in the sentence.
The family failed to prove their son's innocence in court because the legal arguments were based on tenuous claims.

Ans
✗ 1. flimsy
✗ 2. ephemera
✓ 3. substantial
✗ 4. fragile

Question ID : **4410091513030**
Option 1 ID : **4410095976152**
Option 2 ID : **4410095976150**
Option 3 ID : **4410095976153**
Option 4 ID : **4410095976151**

QuickSarkari.com | WhatsApp Channel | Telegram: t.me/quick_sarkari

Q.2 Select the appropriate antonym of the underlined word in the given sentence.
Many hours of <u>meticulous</u> preparation have gone into writing the book.

Ans
✗ 1. Finicky
✗ 2. Vigilant
✗ 3. Fussy
✓ 4. Careless

Question ID : **4410091530708**
Option 1 ID : **4410096045917**
Option 2 ID : **4410096045916**
Option 3 ID : **4410096045918**
Option 4 ID : **4410096045915**

Q.3 Select the most appropriate antonym of the highlighted word in the following sentence.

Despite widespread scepticism, the research team unveiled a **colossal** breakthrough, one that promised to reshape existing scientific paradigms, but its practical application was hindered by several minor procedural flaws.

Ans
✓ 1. Minuscule
✗ 2. Substantial
✗ 3. Monumental
✗ 4. Immense

Question ID : **4410091527989**
Option 1 ID : **4410096035155**
Option 2 ID : **4410096035156**
Option 3 ID : **4410096035154**
Option 4 ID : **4410096035153**

Q.4 Identify the word in the given sentence that contains a spelling error and select the option that rectifies this error.
The cogent argument circamscribed the ubiquitous misconceptions, forcing scholars to reconcile conflicting interpretations rigorously.

Ans
✗ 1. reconcile
✓ 2. circumscribed
✗ 3. cogent
✗ 4. ubiquitous

Question ID : **4410091516782**
Option 1 ID : **4410095990528**
Option 2 ID : **4410095990526**
Option 3 ID : **4410095990525**
Option 4 ID : **4410095990527**

QuickSarkari.com | WhatsApp Channel | Telegram: t.me/quick_sarkari

Q.5 Select the most appropriate option that can correctly substitute the Underlined part of the given sentence.
With a sarcastic smile, he reminded her that <u>curiosity mend the shoes</u>, especially in a field where uncovering hidden truths often meant becoming part of them.

Ans
1. necessity killed the hen
2. curiosity killed the cat
3. insecurity killed the rat
4. obligation killed the hen

Question ID : **4410091531210**
Option 1 ID : **4410096047899**
Option 2 ID : **4410096047901**
Option 3 ID : **4410096047900**
Option 4 ID : **4410096047902**

Q.6 In the following question, a statement has been given with highlighted text. You are required to replace the text with the correct proverb from the given alternatives.

When Ravi lost his job, faced financial troubles, and struggled to support his family, he refused to give up. Instead, he worked harder, learned new skills, and eventually secured a better position, proving that **a person's true character is revealed when they confront hardships bravely.**

Ans
1. every cloud has a silver lining
2. necessity is the mother of invention
3. adversity is the touchstone of life
4. fortune favours the brave

Question ID : **4410091540861**
Option 1 ID : **4410096086708**
Option 2 ID : **4410096086710**
Option 3 ID : **4410096086707**
Option 4 ID : **4410096086709**

Q.7 Select the most appropriate antonym of the highlighted word in the following sentence.

Despite navigating a series of unforeseen logistical setbacks, the research committee produced an **impeccable** final report, demonstrating rigorous analysis and exceptional academic precision.

Ans
1. Flawed
2. Faultless
3. Exemplary
4. Pristine

Question ID : **4410091527966**
Option 1 ID : **4410096035061**
Option 2 ID : **4410096035064**
Option 3 ID : **4410096035062**
Option 4 ID : **4410096035063**

QuickSarkari.com | WhatsApp Channel | Telegram: t.me/quick_sarkari

Q.8 Select the INCORRECTLY spelt word.

Ans
✗ 1. Bureaucratic
✗ 2. Magnanimous
✗ 3. Conscientious
✓ 4. Appeacement

Question ID : **4410091527890**
Option 1 ID : **4410096034761**
Option 2 ID : **4410096034762**
Option 3 ID : **4410096034760**
Option 4 ID : **4410096034759**

Q.9 Select the most appropriate option to replace the underlined words in the sentence.

The celebrity was plagued by a long-running accusation, and even after the court formally cleared her of all charges, the public continued to treat her as guilty. They believed her character was fundamentally flawed and unchangeable.

Ans
✗ 1. that even a stopped clock tells the right time twice a day
✗ 2. that the tallest tree catches the most wind
✓ 3. that once a dog is given a bad name, it is hanged
✗ 4. that a watched pot boils last

Question ID : **4410091512716**
Option 1 ID : **4410095974911**
Option 2 ID : **4410095974910**
Option 3 ID : **4410095974912**
Option 4 ID : **4410095974913**

Q.10 Choose the most appropriate option to replace the underlined words in the sentence.

When a false narrative was set by her enemies in the office to discredit her, she chose to face that unpleasant situation courageously.

Ans
✗ 1. hit the ground running
✓ 2. bite the bullet
✗ 3. cut to the chase
✗ 4. call it a day

Question ID : **4410091512629**
Option 1 ID : **4410095974577**
Option 2 ID : **4410095974574**
Option 3 ID : **4410095974576**
Option 4 ID : **4410095974575**

QuickSarkari.com | WhatsApp Channel | Telegram: t.me/quick_sarkari

Comprehension:

Read the passage carefully and answer the questions given below.

Social mobility refers to the movement of individuals or groups between different levels of a social hierarchy. It shows how people change their social status over time, either improving their position through upward mobility or losing it through downward mobility. Among its various forms, intergenerational mobility, which compares a person's social position with that of their parents, is one of the most significant aspects. It reflects how far a society allows individuals to progress through their own efforts rather than family background.

Education plays a pivotal role in shaping intergenerational mobility. Equal access to education enables individuals from lower socioeconomic groups to acquire the skills and qualifications necessary for better occupations and incomes. However, when educational opportunities are distributed unevenly, existing class divisions continue, and social advancement becomes limited. Hence, education can act both as a ladder for progress and as a wall of restriction, depending on how fairly it is provided.

Government policies, social networks, and labour market conditions also influence the degree of mobility within a nation. When institutions work in compliance with fairness, inclusivity, and transparency, they create conditions for greater equality of opportunity. In contrast, structural barriers hinder progress. Therefore, intergenerational mobility remains an essential measure of how open and just a society truly is, where merit and effort define success.

SubQuestion No : 11

Q.11 Select an appropriate title for this passage from the given options.

Ans

✗ 1. The Patterns of Social Mobility

✓ 2. The Dynamics of Social Mobility

✗ 3. The Causes of Social Mobility

✗ 4. The Limits of Social Mobility

Question ID : **4410091448794**
Option 1 ID : **4410095723626**
Option 2 ID : **4410095723627**
Option 3 ID : **4410095723624**
Option 4 ID : **4410095723625**

QuickSarkari.com | WhatsApp Channel | Telegram: t.me/quick_sarkari

Comprehension:

Read the passage carefully and answer the questions given below.

Social mobility refers to the movement of individuals or groups between different levels of a social hierarchy. It shows how people change their social status over time, either improving their position through upward mobility or losing it through downward mobility. Among its various forms, intergenerational mobility, which compares a person's social position with that of their parents, is one of the most significant aspects. It reflects how far a society allows individuals to progress through their own efforts rather than family background.

Education plays a pivotal role in shaping intergenerational mobility. Equal access to education enables individuals from lower socioeconomic groups to acquire the skills and qualifications necessary for better occupations and incomes. However, when educational opportunities are distributed unevenly, existing class divisions continue, and social advancement becomes limited. Hence, education can act both as a ladder for progress and as a wall of restriction, depending on how fairly it is provided.

Government policies, social networks, and labour market conditions also influence the degree of mobility within a nation. When institutions work in compliance with fairness, inclusivity, and transparency, they create conditions for greater equality of opportunity. In contrast, structural barriers hinder progress. Therefore, intergenerational mobility remains an essential measure of how open and just a society truly is, where merit and effort define success.

SubQuestion No : 12

Q.12 What is the main idea of the passage?

Ans

✔ 1. The passage focuses upon the role of education in shaping social mobility and how equal opportunities can promote fairness and progress in society.

✘ 2. The passage focuses upon the limited nature of social mobility and how government policies hardly influence people's progress.

✘ 3. The passage focuses upon the false promise of social mobility and how merit alone cannot transform one's economic position in modern society.

✘ 4. The passage focuses upon the causes of social mobility and how wealth determines one's progress in society.

Question ID : **4410091448795**
Option 1 ID : **4410095723630**
Option 2 ID : **4410095723629**
Option 3 ID : **4410095723631**
Option 4 ID : **4410095723628**

QuickSarkari.com | WhatsApp Channel | Telegram: t.me/quick_sarkari

Comprehension:

Read the passage carefully and answer the questions given below.

Social mobility refers to the movement of individuals or groups between different levels of a social hierarchy. It shows how people change their social status over time, either improving their position through upward mobility or losing it through downward mobility. Among its various forms, intergenerational mobility, which compares a person's social position with that of their parents, is one of the most significant aspects. It reflects how far a society allows individuals to progress through their own efforts rather than family background.

Education plays a pivotal role in shaping intergenerational mobility. Equal access to education enables individuals from lower socioeconomic groups to acquire the skills and qualifications necessary for better occupations and incomes. However, when educational opportunities are distributed unevenly, existing class divisions continue, and social advancement becomes limited. Hence, education can act both as a ladder for progress and as a wall of restriction, depending on how fairly it is provided.

Government policies, social networks, and labour market conditions also influence the degree of mobility within a nation. When institutions work in compliance with fairness, inclusivity, and transparency, they create conditions for greater equality of opportunity. In contrast, structural barriers hinder progress. Therefore, intergenerational mobility remains an essential measure of how open and just a society truly is, where merit and effort define success.

SubQuestion No : 13

Q.13 Identify the structure of the passage.

Ans

✗ 1. Chronological

✗ 2. Descriptive

✗ 3. Narrative

✓ 4. Expository

Question ID : **4410091448796**
Option 1 ID : **4410095723635**
Option 2 ID : **4410095723634**
Option 3 ID : **4410095723633**
Option 4 ID : **4410095723632**

QuickSarkari.com | WhatsApp Channel | Telegram: t.me/quick_sarkari

Comprehension:

Read the passage carefully and answer the questions given below.

Social mobility refers to the movement of individuals or groups between different levels of a social hierarchy. It shows how people change their social status over time, either improving their position through upward mobility or losing it through downward mobility. Among its various forms, intergenerational mobility, which compares a person's social position with that of their parents, is one of the most significant aspects. It reflects how far a society allows individuals to progress through their own efforts rather than family background.

Education plays a pivotal role in shaping intergenerational mobility. Equal access to education enables individuals from lower socioeconomic groups to acquire the skills and qualifications necessary for better occupations and incomes. However, when educational opportunities are distributed unevenly, existing class divisions continue, and social advancement becomes limited. Hence, education can act both as a ladder for progress and as a wall of restriction, depending on how fairly it is provided.

Government policies, social networks, and labour market conditions also influence the degree of mobility within a nation. When institutions work in compliance with fairness, inclusivity, and transparency, they create conditions for greater equality of opportunity. In contrast, structural barriers hinder progress. Therefore, intergenerational mobility remains an essential measure of how open and just a society truly is, where merit and effort define success.

SubQuestion No : 14

Q.14 Identify the tone of the passage.

Ans

✗ 1. Informative and Cautionary

✓ 2. Informative and Analytical

✗ 3. Persuasive and Emotional

✗ 4. Analytical and Argumentative

Question ID : **4410091448797**
Option 1 ID : **4410095723639**
Option 2 ID : **4410095723638**
Option 3 ID : **4410095723636**
Option 4 ID : **4410095723637**

QuickSarkari.com | WhatsApp Channel | Telegram: t.me/quick_sarkari

Comprehension:

Read the passage carefully and answer the questions given below.

Social mobility refers to the movement of individuals or groups between different levels of a social hierarchy. It shows how people change their social status over time, either improving their position through upward mobility or losing it through downward mobility. Among its various forms, intergenerational mobility, which compares a person's social position with that of their parents, is one of the most significant aspects. It reflects how far a society allows individuals to progress through their own efforts rather than family background.

Education plays a pivotal role in shaping intergenerational mobility. Equal access to education enables individuals from lower socioeconomic groups to acquire the skills and qualifications necessary for better occupations and incomes. However, when educational opportunities are distributed unevenly, existing class divisions continue, and social advancement becomes limited. Hence, education can act both as a ladder for progress and as a wall of restriction, depending on how fairly it is provided.

Government policies, social networks, and labour market conditions also influence the degree of mobility within a nation. When institutions work in compliance with fairness, inclusivity, and transparency, they create conditions for greater equality of opportunity. In contrast, structural barriers hinder progress. Therefore, intergenerational mobility remains an essential measure of how open and just a society truly is, where merit and effort define success.

SubQuestion No : 15

Q.15 Select the correct antonym of the given word from the passage.
Defiance

Ans

✔ 1. Compliance

✘ 2. Condition

✘ 3. Opportunity

✘ 4. Fairness

Question ID : **4410091448798**
Option 1 ID : **4410095723642**
Option 2 ID : **4410095723641**
Option 3 ID : **4410095723643**
Option 4 ID : **4410095723640**

QuickSarkari.com | WhatsApp Channel | Telegram: t.me/quick_sarkari

Comprehension:

Read the passage below and answer the questions that follow.

Technological innovation has long been associated with economic growth, but the nature of this relationship is undergoing rapid transformation. In earlier decades, innovation primarily meant improving machinery, expanding industrial capacity, or increasing production efficiency. Today, however, the focus has shifted toward intangible drivers such as data, digital infrastructure, and algorithmic decision-making. Nations that once competed for industrial dominance now compete for intellectual property, computing power, and digital talent. This shift has raised important questions about inclusivity and access. While digital tools have democratized certain opportunities—allowing individuals to start businesses, create content, or learn new skills—large-scale inequalities persist. Many experts warn of a widening gap between countries with strong digital ecosystems and those struggling to build foundational infrastructure. Even within advanced economies, disparities appear in digital literacy, access to high-quality data, and the ability of small firms to adopt emerging technologies. Another issue concerns accountability. As algorithms play a greater role in financial decisions, public policy, healthcare diagnostics, and even criminal justice, debates around transparency and ethical standards have intensified. Critics argue that opaque systems may reinforce biases or operate without clear lines of responsibility. Proponents contend that algorithmic decision-making can outperform human judgment when designed and monitored carefully. Ultimately, the global economy is moving toward a model where technological capability determines not only productivity but also power and social equity. Whether this shift leads to broader progress or deeper divides depends on how responsibly nations manage innovation, regulate digital systems, and ensure widespread access to emerging technologies.

SubQuestion No : 16

Q.16 Identify the suitable title for the passage.

Ans

✗ 1. Digital Innovation and Global Inequality

✓ 2. Challenges of Algorithmic Decision-Making

✗ 3. The Decline of Traditional Economies

✗ 4. Industrial Growth and Labour Markets

Question ID : **4410091502767**
Option 1 ID : **4410095935354**
Option 2 ID : **4410095935353**
Option 3 ID : **4410095935355**
Option 4 ID : **4410095935352**

QuickSarkari.com | WhatsApp Channel | Telegram: t.me/quick_sarkari

Comprehension:

Read the passage below and answer the questions that follow.

Technological innovation has long been associated with economic growth, but the nature of this relationship is undergoing rapid transformation. In earlier decades, innovation primarily meant improving machinery, expanding industrial capacity, or increasing production efficiency. Today, however, the focus has shifted toward intangible drivers such as data, digital infrastructure, and algorithmic decision-making. Nations that once competed for industrial dominance now compete for intellectual property, computing power, and digital talent. This shift has raised important questions about inclusivity and access. While digital tools have democratized certain opportunities—allowing individuals to start businesses, create content, or learn new skills—large-scale inequalities persist. Many experts warn of a widening gap between countries with strong digital ecosystems and those struggling to build foundational infrastructure. Even within advanced economies, disparities appear in digital literacy, access to high-quality data, and the ability of small firms to adopt emerging technologies. Another issue concerns accountability. As algorithms play a greater role in financial decisions, public policy, healthcare diagnostics, and even criminal justice, debates around transparency and ethical standards have intensified. Critics argue that opaque systems may reinforce biases or operate without clear lines of responsibility. Proponents contend that algorithmic decision-making can outperform human judgment when designed and monitored carefully. Ultimately, the global economy is moving toward a model where technological capability determines not only productivity but also power and social equity. Whether this shift leads to broader progress or deeper divides depends on how responsibly nations manage innovation, regulate digital systems, and ensure widespread access to emerging technologies.

SubQuestion No : 17

Q.17 Identify the central theme of the passage.

Ans

✗ 1. Industrial production remains the backbone of global growth.

✗ 2. Algorithmic systems are replacing human workers rapidly.

✗ 3. Digital tools have eliminated global inequalities.

✓ 4. Technology now determines economic strength and social equity.

Question ID : **4410091502768**
Option 1 ID : **4410095935358**
Option 2 ID : **4410095935356**
Option 3 ID : **4410095935359**
Option 4 ID : **4410095935357**

QuickSarkari.com | WhatsApp Channel | Telegram: t.me/quick_sarkari

Comprehension:

Read the passage below and answer the questions that follow.

Technological innovation has long been associated with economic growth, but the nature of this relationship is undergoing rapid transformation. In earlier decades, innovation primarily meant improving machinery, expanding industrial capacity, or increasing production efficiency. Today, however, the focus has shifted toward intangible drivers such as data, digital infrastructure, and algorithmic decision-making. Nations that once competed for industrial dominance now compete for intellectual property, computing power, and digital talent. This shift has raised important questions about inclusivity and access. While digital tools have democratized certain opportunities—allowing individuals to start businesses, create content, or learn new skills—large-scale inequalities persist. Many experts warn of a widening gap between countries with strong digital ecosystems and those struggling to build foundational infrastructure. Even within advanced economies, disparities appear in digital literacy, access to high-quality data, and the ability of small firms to adopt emerging technologies. Another issue concerns accountability. As algorithms play a greater role in financial decisions, public policy, healthcare diagnostics, and even criminal justice, debates around transparency and ethical standards have intensified. Critics argue that opaque systems may reinforce biases or operate without clear lines of responsibility. Proponents contend that algorithmic decision-making can outperform human judgment when designed and monitored carefully. Ultimately, the global economy is moving toward a model where technological capability determines not only productivity but also power and social equity. Whether this shift leads to broader progress or deeper divides depends on how responsibly nations manage innovation, regulate digital systems, and ensure widespread access to emerging technologies.

SubQuestion No : 18

Q.18 Identify the fact given in the passage.

Ans

✗ 1. Algorithmic decisions are always superior to human judgment.

✓ 2. Experts warn of growing digital inequalities between nations.

✗ 3. Industrial innovation is more important than digital innovation today.

✗ 4. All countries now enjoy equal access to digital tools.

Question ID : **4410091502769**
Option 1 ID : **4410095935362**
Option 2 ID : **4410095935361**
Option 3 ID : **4410095935363**
Option 4 ID : **4410095935360**

QuickSarkari.com | WhatsApp Channel | Telegram: t.me/quick_sarkari

Comprehension:

Read the passage below and answer the questions that follow.

Technological innovation has long been associated with economic growth, but the nature of this relationship is undergoing rapid transformation. In earlier decades, innovation primarily meant improving machinery, expanding industrial capacity, or increasing production efficiency. Today, however, the focus has shifted toward intangible drivers such as data, digital infrastructure, and algorithmic decision-making. Nations that once competed for industrial dominance now compete for intellectual property, computing power, and digital talent. This shift has raised important questions about inclusivity and access. While digital tools have democratized certain opportunities—allowing individuals to start businesses, create content, or learn new skills—large-scale inequalities persist. Many experts warn of a widening gap between countries with strong digital ecosystems and those struggling to build foundational infrastructure. Even within advanced economies, disparities appear in digital literacy, access to high-quality data, and the ability of small firms to adopt emerging technologies. Another issue concerns accountability. As algorithms play a greater role in financial decisions, public policy, healthcare diagnostics, and even criminal justice, debates around transparency and ethical standards have intensified. Critics argue that opaque systems may reinforce biases or operate without clear lines of responsibility. Proponents contend that algorithmic decision-making can outperform human judgment when designed and monitored carefully. Ultimately, the global economy is moving toward a model where technological capability determines not only productivity but also power and social equity. Whether this shift leads to broader progress or deeper divides depends on how responsibly nations manage innovation, regulate digital systems, and ensure widespread access to emerging technologies.

SubQuestion No : 19

Q.19 Select the correct summary for the passage.

Ans

✔ 1. The passage describes how digital innovation drives economic competitiveness while also creating concerns about inequality and accountability.

✘ 2. The passage claims that algorithmic systems have eliminated human error entirely.

✘ 3. The passage argues that industrial innovation will soon overtake digital innovation.

✘ 4. The passage explains why developing nations no longer need technological infrastructure.

Question ID : **4410091502770**
Option 1 ID : **4410095935365**
Option 2 ID : **4410095935367**
Option 3 ID : **4410095935364**
Option 4 ID : **4410095935366**

QuickSarkari.com | WhatsApp Channel | Telegram: t.me/quick_sarkari

Comprehension:

Read the passage below and answer the questions that follow.

Technological innovation has long been associated with economic growth, but the nature of this relationship is undergoing rapid transformation. In earlier decades, innovation primarily meant improving machinery, expanding industrial capacity, or increasing production efficiency. Today, however, the focus has shifted toward intangible drivers such as data, digital infrastructure, and algorithmic decision-making. Nations that once competed for industrial dominance now compete for intellectual property, computing power, and digital talent. This shift has raised important questions about inclusivity and access. While digital tools have democratized certain opportunities—allowing individuals to start businesses, create content, or learn new skills—large-scale inequalities persist. Many experts warn of a widening gap between countries with strong digital ecosystems and those struggling to build foundational infrastructure. Even within advanced economies, disparities appear in digital literacy, access to high-quality data, and the ability of small firms to adopt emerging technologies. Another issue concerns accountability. As algorithms play a greater role in financial decisions, public policy, healthcare diagnostics, and even criminal justice, debates around transparency and ethical standards have intensified. Critics argue that opaque systems may reinforce biases or operate without clear lines of responsibility. Proponents contend that algorithmic decision-making can outperform human judgment when designed and monitored carefully. Ultimately, the global economy is moving toward a model where technological capability determines not only productivity but also power and social equity. Whether this shift leads to broader progress or deeper divides depends on how responsibly nations manage innovation, regulate digital systems, and ensure widespread access to emerging technologies.

SubQuestion No : 20

Q.20 Choose the antonym of the word "intensified" as used in the passage.

Ans

✔ 1. Lessened

✘ 2. Heightened

✘ 3. Expanded

✘ 4. Increased

Question ID : **4410091502771**
Option 1 ID : **4410095935370**
Option 2 ID : **4410095935371**
Option 3 ID : **4410095935369**
Option 4 ID : **4410095935368**

"

QuickSarkari.com | WhatsApp Channel | Telegram: t.me/quick_sarkari

Quick Sarkari

Thank you for studying with QuickSarkari!

Get the latest Sarkari Naukri notifications, admit cards, results, answer keys and free previous-year papers first - follow us on WhatsApp and Telegram.

Visit www.quicksarkari.com

Join our WhatsApp Channel

https://whatsapp.com/channel/0029VaxxbrREquiPoXTWM229

Join our Telegram Channel

https://t.me/quick_sarkari

Share this PDF with your friends preparing for DSSSB exams.