DSSSB PREVIOUS YEAR PAPER WITH ANSWER KEY

DSSSB Naib Tehsildar

28 February 2026 · Shift 3

डीएसएसएसबी नायब तहसीलदार – 28 फरवरी 2026, शिफ्ट 3 का प्रश्न पत्र, उत्तर कुंजी सहित

200	120 min	1 / −0.25	EN + HI
Questions / प्रश्न	Duration / समय	Marks per Q / अंक	Language / भाषा

Sections: General Awareness, General intelligence and Reasoning Ability, Arithmetical and Numerical Ability, Hindi Language and Comprehension, English Language and Comprehension

INSIDE THIS PDF / इस PDF में

Question Paper in English + Hindi with Answer Key (correct option marked in green) + answer table — Page 2–56
प्रश्न पत्र अंग्रेज़ी + हिंदी में, उत्तर कुंजी सहित (सही विकल्प हरे रंग में) + उत्तर तालिका

Official DSSSB Response Sheet with Answer Key (correct option ticked in green) — Page 57–134
आधिकारिक DSSSB रिस्पॉन्स शीट, उत्तर कुंजी सहित (सही विकल्प हरे टिक से)

HOW TO USE THIS PAPER / इस पेपर का उपयोग कैसे करें

1. Attempt the paper first as a timed online mock test (link below).
   पहले नीचे दिए लिंक से इसे टाइमर के साथ ऑनलाइन मॉक टेस्ट के रूप में हल करें।
2. Check your score, section-wise analysis and solutions online.
   ऑनलाइन अपना स्कोर, खंड-वार विश्लेषण और हल देखें।
3. Use this PDF for revision. Correct answers are shown in green.
   दोहराने के लिए इस PDF का उपयोग करें। सही उत्तर हरे रंग में दिए गए हैं।

Attempt this paper as a FREE online mock test
इस पेपर को फ्री ऑनलाइन मॉक टेस्ट के रूप में हल करें – टाइमर, स्कोर और हल के साथ
https://quicksarkari.com/dsssb-naib-tehsildar-28-february-2026-shift-3-mock-test/

All DSSSB Naib Tehsildar papers and mock tests: **quicksarkari.com/dsssb-mock-test/#naib-tehsildar**

Join WhatsApp Channel | Join Telegram Channel

DSSSB Naib Tehsildar – Question Paper (English + Hindi)

DSSSB नायब तहसीलदार – प्रश्न पत्र (अंग्रेज़ी + हिंदी)

Exam held on 28 February 2026, Shift 3 · 200 questions · correct answers marked ✔ in green
परीक्षा तिथि 28 फरवरी 2026, शिफ्ट 3 · 200 प्रश्न · सही उत्तर हरे रंग में ✔ से चिह्नित

> The official paper for this shift was in English. The Hindi version of each question is a translation prepared by QuickSarkari; the language-section questions are shown as asked.
> इस शिफ्ट का आधिकारिक प्रश्न पत्र अंग्रेज़ी में था। प्रत्येक प्रश्न का हिंदी संस्करण QuickSarkari द्वारा तैयार किया गया अनुवाद है; भाषा खंड के प्रश्न मूल रूप में दिए गए हैं।

General Awareness

Q.1 In which of the following ways do Microfinance Institutions (MFIs) primarily contribute to financial inclusion in rural India?
निम्नलिखित में से किस प्रकार सूक्ष्म वित्त संस्थान (MFIs) मुख्य रूप से ग्रामीण भारत में वित्तीय समावेशन में योगदान देते हैं?

(1) Focusing exclusively on urban populations to bridge the urban-rural financial divide / शहरी-ग्रामीण वित्तीय अंतर को पाटने के लिए केवल शहरी आबादी पर ध्यान केंद्रित करके
(2) Offering technology-driven financial solutions that are accessible only to tech-savvy consumers / प्रौद्योगिकी-आधारित वित्तीय समाधान प्रदान करके, जो केवल तकनीक-प्रेमी उपभोक्ताओं के लिए सुलभ हैं
(3) Providing accessible, small-scale financial services such as credit, savings, and insurance to underserved populations / वंचित आबादी को ऋण, बचत और बीमा जैसी सुलभ, छोटे पैमाने की वित्तीय सेवाएँ प्रदान करके ✔
(4) By offering high-value corporate loans to stimulate large-scale industrial projects / बड़े पैमाने की औद्योगिक परियोजनाओं को प्रोत्साहित करने के लिए उच्च-मूल्य के कॉर्पोरेट ऋण प्रदान करके

Q.2 In which of the following ways does NABARD's refinance scheme for rural financial institutions affect agricultural development?
ग्रामीण वित्तीय संस्थानों के लिए नाबार्ड (NABARD) की पुनर्वित्त योजना निम्नलिखित में से किस प्रकार कृषि विकास को प्रभावित करती है?

(1) By directly purchasing agricultural produce from farmers / किसानों से सीधे कृषि उपज खरीदकर
(2) By offering long-term loans at subsidised rates to rural banks for agricultural lending / कृषि ऋण देने के लिए ग्रामीण बैंकों को रियायती दरों पर दीर्घकालिक ऋण प्रदान करके ✔
(3) By providing short-term loans to consumers / उपभोक्ताओं को अल्पकालिक ऋण प्रदान करके
(4) By investing in technology startups in rural areas / ग्रामीण क्षेत्रों में प्रौद्योगिकी स्टार्टअप में निवेश करके

Q.3 Which acclaimed actor was announced as the recipient of the Dadasaheb Phalke Award for 2023 in September 2025?
सितंबर 2025 में किस प्रख्यात अभिनेता को वर्ष 2023 के दादासाहेब फाल्के पुरस्कार के प्राप्तकर्ता के रूप में घोषित किया गया?

(1) Kamal Haasan / कमल हासन
(2) Mohanlal / मोहनलाल ✔
(3) Amitabh Bachchan / अमिताभ बच्चन
(4) Mammootty / ममूटी

Q.4 Who founded the Slave Dynasty in India?

भारत में गुलाम वंश की स्थापना किसने की थी?

(1) Balban / बलबन

(2) **Qutbuddin Aibak / कुतुबुद्दीन ऐबक ✔**

(3) Iltutmish / इल्तुतमिश

(4) Razia Sultan / रज़िया सुल्तान

Q.5 Which of the following bodies organised the national-level defence manufacturing conference under the Department of Defence Production in October 2025?

अक्टूबर 2025 में रक्षा उत्पादन विभाग के अंतर्गत राष्ट्रीय स्तर के रक्षा विनिर्माण सम्मेलन का आयोजन निम्नलिखित में से किस निकाय ने किया?

(1) Ministry of Commerce / वाणिज्य मंत्रालय

(2) **Ministry of Defence / रक्षा मंत्रालय ✔**

(3) Defence Research and Development Organisation / रक्षा अनुसंधान एवं विकास संगठन

(4) Indian Army / भारतीय थल सेना

Q.6 Which of the following was the immediate trigger of the 1857 Revolt?

निम्नलिखित में से कौन-सा 1857 के विद्रोह का तात्कालिक कारण था?

(1) Doctrine of Lapse / व्यपगत का सिद्धांत

(2) **Enfield rifle cartridges / एनफील्ड राइफल के कारतूस ✔**

(3) Annexation of Awadh / अवध का विलय

(4) Heavy taxation / भारी कराधान

Q.7 During the SAMANVAY 2025 in Bengaluru on October 29, 2025, the DRDO handed over how many Licensing Agreements for Transfer of Technology (LATOTs) to industry partners?

29 अक्टूबर, 2025 को बेंगलुरु में आयोजित SAMANVAY 2025 के दौरान, DRDO ने उद्योग भागीदारों को प्रौद्योगिकी हस्तांतरण हेतु कितने लाइसेंसिंग समझौते (LATOTs) सौंपे?

(1) 8 Licensing Agreements / 8 लाइसेंसिंग समझौते

(2) **12 Licensing Agreements / 12 लाइसेंसिंग समझौते ✔**

(3) 10 Licensing Agreements / 10 लाइसेंसिंग समझौते

(4) 6 Licensing Agreements / 6 लाइसेंसिंग समझौते

Q.8 Where did ISRO perform the Gaganyaan Service Module Propulsion System (SMPS) hot tests in July 2025 successfully?

जुलाई 2025 में ISRO ने गगनयान सर्विस मॉड्यूल प्रणोदन प्रणाली (SMPS) केहॉट टेस्ट सफलतापूर्वक कहाँ किए?

(1) Sriharikota / श्रीहरिकोटा

(2) **Mahendragiri / महेंद्रगिरि ✔**

(3) Thiruvananthapuram / तिरुवनंतपुरम

(4) Bengaluru / बेंगलुरु

Q.9 What was the cumulative sanction amount by NABARD for rural infrastructure financing, as reported in the fiscal year 2024?

वित्तीय वर्ष 2024 में बताए गए अनुसार, ग्रामीण अवसंरचना वित्तपोषण के लिए नाबार्ड (NABARD) द्वारा संचयी स्वीकृत राशि कितनी थी?

(1) ₹9.0 lakh crore / ₹9.0 लाख करोड़

(2) ₹7.5 lakh crore / ₹7.5 लाख करोड़

(3) **₹8.2 lakh crore / ₹8.2 लाख करोड़ ✔**

(4) ₹10 lakh crore / ₹10 लाख करोड़

Q.10 Which session of the Committee of Experts on International Cooperation in Tax Matters was held at the United Nations Office in Geneva from October 21–24, 2025?

कर मामलों में अंतर्राष्ट्रीय सहयोग पर विशेषज्ञ समिति का कौन-सा सत्र 21–24 अक्टूबर, 2025 तक जिनेवा स्थित संयुक्त राष्ट्र कार्यालय में आयोजित किया गया?

(1) 30th / 30वाँ

(2) 34th / 34वाँ

(3) 31st / 31वाँ ✔

(4) 25th / 25वाँ

Q.11 Which of the following launch vehicles successfully launched the CMS-03 communication satellite in its 5th operational flight on 02 November 2025?

निम्नलिखित में से किस प्रक्षेपण यान ने 02 नवंबर 2025 को अपनी 5वीं परिचालन उड़ान में CMS-03 संचार उपग्रह को सफलतापूर्वक प्रक्षेपित किया?

(1) LVM3 ✔

(2) GSLV Mk-II

(3) PSLV

(4) SSLV

Q.12 On 25–26 September 2025, the 18th Governing Board Meeting of the SAARC Energy Centre was held in which city?

25–26 सितंबर 2025 को सार्क ऊर्जा केंद्र (SAARC Energy Centre) के शासी बोर्ड की 18वीं बैठक किस शहर में आयोजित की गई?

(1) Islamabad / इस्लामाबाद ✔

(2) Colombo / कोलंबो

(3) Dhaka / ढाका

(4) Kathmandu / काठमांडू

Q.13 The 16th India-European Union Summit on January 27, 2026, was held in which Indian city?

27 जनवरी, 2026 को 16वाँ भारत-यूरोपीय संघ शिखर सम्मेलन किस भारतीय शहर में आयोजित किया गया?

(1) Bengaluru / बेंगलुरु

(2) Mumbai / मुंबई

(3) New Delhi / नई दिल्ली ✔

(4) Hyderabad / हैदराबाद

Q.14 The Pitt's India Act (1784) created which supervisory body in Britain?

पिट्स इंडिया एक्ट (1784) ने ब्रिटेन में किस पर्यवेक्षी निकाय का गठन किया?

(1) Indian Council / भारत परिषद

(2) Board of Control / बोर्ड ऑफ कंट्रोल ✔

(3) Council of State / राज्य परिषद

(4) House of Lords Committee / हाउस ऑफ लॉर्ड्स समिति

Q.15 The 9th edition of India Mobile Congress 2025 (IMC 2025) was organised by which two organisations?

इंडिया मोबाइल कांग्रेस 2025 (IMC 2025) के 9वें संस्करण का आयोजन किन दो संगठनों द्वारा किया गया?

(1) Telecom Regulatory Authority of India (TRAI) & Ministry of Electronics and Information Technology (MeitY) / भारतीय दूरसंचार विनियामक प्राधिकरण (TRAI) और इलेक्ट्रॉनिकी और सूचना प्रौद्योगिकी मंत्रालय (MeitY)

(2) Department of Telecommunications (DoT) & Cellular Operators Association of India (COAI) / दूरसंचार विभाग (DoT) और सेल्युलर ऑपरेटर्स एसोसिएशन ऑफ इंडिया (COAI) ✔

(3) Ministry of Electronics and Information Technology (MeitY) & National Association of Software and Service Companies (NASSCOM) / इलेक्ट्रॉनिकी और सूचना प्रौद्योगिकी मंत्रालय (MeitY) और नेशनल एसोसिएशन ऑफ सॉफ्टवेयर एंड सर्विस कंपनीज़ (NASSCOM)

(4) Department of Telecommunications (DoT) & Telecom Regulatory Authority of India (TRAI) / दूरसंचार विभाग (DoT) और भारतीय दूरसंचार विनियामक प्राधिकरण (TRAI)

Q.16 The NAVYA initiative, launched in June 2025, primarily focuses on which age group of adolescent girls for vocational training and skill development?

जून 2025 में शुरू की गई NAVYA पहल व्यावसायिक प्रशिक्षण और कौशल विकास के लिए मुख्य रूप से किशोरियों के किस आयु वर्ग पर केंद्रित है?

(1) 10–14 years / 10–14 वर्ष

(2) 12–16 years / 12–16 वर्ष

(3) 18–20 years / 18–20 वर्ष

(4) 16–18 years / 16–18 वर्ष ✔

Q.17 Which of the following correctly explains the custom of coparcenary inheritance which was followed by the Mughals?

निम्नलिखित में से कौन-सा कथन मुगलों द्वारा अपनाई जाने वाली सहदायिकी उत्तराधिकार (coparcenary inheritance) की प्रथा की सही व्याख्या करता है?

(1) Division of the inheritance where the youngest son inherited his father's estate. / उत्तराधिकार का ऐसा विभाजन जिसमें सबसे छोटे पुत्र को पिता की संपत्ति विरासत में मिलती थी।

(2) Division of the inheritance where the eldest son inherited his father's estate. / उत्तराधिकार का ऐसा विभाजन जिसमें सबसे बड़े पुत्र को पिता की संपत्ति विरासत में मिलती थी।

(3) Division of the inheritance amongst all the sons. / सभी पुत्रों के बीच उत्तराधिकार का विभाजन। ✔

(4) Division of inheritance amongst all the ministers. / सभी मंत्रियों के बीच उत्तराधिकार का विभाजन।

Q.18 In which year was the French East India Company founded?

फ्रांसीसी ईस्ट इंडिया कंपनी की स्थापना किस वर्ष हुई थी?

(1) 1720

(2) 1664 ✔

(3) 1620

(4) 1640

Q.19 The Indian Space Research Organisation (ISRO) in collaboration with which of the following institutions organised the second edition of ISRO STC Confluence on July 1 and 2, 2025?
भारतीय अंतरिक्ष अनुसंधान संगठन (ISRO) ने निम्नलिखित में से किस संस्थान के सहयोग से 1 और 2 जुलाई, 2025 को ISRO STC कॉन्फ्लुएंस के दूसरे संस्करण का आयोजन किया?

(1) Indian Institute of Technology (IIT) Guwahati / भारतीय प्रौद्योगिकी संस्थान (IIT) गुवाहाटी
(2) Indian Institute of Technology (IIT) Bombay / भारतीय प्रौद्योगिकी संस्थान (IIT) बॉम्बे
(3) Indian Institute of Technology (IIT) Delhi / भारतीय प्रौद्योगिकी संस्थान (IIT) दिल्ली
(4) Indian Institute of Technology (IIT) Kharagpur / भारतीय प्रौद्योगिकी संस्थान (IIT) खड़गपुर ✔

Q.20 What do you call the market in which the securities of governments and public companies are traded?
उस बाज़ार को क्या कहते हैं जिसमें सरकारों और सार्वजनिक कंपनियों की प्रतिभूतियों का व्यापार होता है?

(1) Revenue Exchange / राजस्व विनिमय
(2) Stock Exchange / स्टॉक एक्सचेंज ✔
(3) Equity Exchange / इक्विटी एक्सचेंज
(4) Fund Exchange / फंड एक्सचेंज

Q.21 Which is the southernmost point of the Indian Union?
भारतीय संघ का सबसे दक्षिणी बिंदु कौन-सा है?

(1) Nicobar Head / निकोबार हेड
(2) Kanyakumari / कन्याकुमारी
(3) Cape Comorin / केप कोमोरिन
(4) Indira Point / इंदिरा पॉइंट ✔

Q.22 Free and compulsory education for children aged 6–14 years is guaranteed under which of the following Articles of the Indian Constitution?
6–14 वर्ष की आयु के बच्चों के लिए निःशुल्क और अनिवार्य शिक्षा की गारंटी भारतीय संविधान के निम्नलिखित में से किस अनुच्छेद के अंतर्गत दी गई है?

(1) Article 30 B / अनुच्छेद 30 B
(2) Article 14 / अनुच्छेद 14
(3) Article 21 A / अनुच्छेद 21 A ✔
(4) Article 24 / अनुच्छेद 24

Q.23 Which month marks the onset of the southwest monsoon over the Kerala coast?
केरल तट पर दक्षिण-पश्चिम मानसून का आगमन किस महीने में होता है?

(1) July / जुलाई
(2) June / जून ✔
(3) May / मई
(4) April / अप्रैल

Q.24 According to the 2011 Census, which of the following North-Eastern states had the highest percentage of urban population?
2011 की जनगणना के अनुसार, निम्नलिखित में से किस पूर्वोत्तर राज्य में शहरी जनसंख्या का प्रतिशत सबसे अधिक था?

(1) Nagaland / नागालैंड
(2) Manipur / मणिपुर
(3) Meghalaya / मेघालय
(4) Mizoram / मिज़ोरम ✔

Q.25 Which of the following are NOT a rich source of antioxidants?

निम्नलिखित में से कौन-से एंटीऑक्सीडेंट के समृद्ध स्रोत नहीं हैं?

(1) Refined grains / परिष्कृत अनाज ✔

(2) Whole grain foods and cereals / साबुत अनाज वाले खाद्य पदार्थ और अनाज

(3) Fruits / फल

(4) Vegetables / सब्ज़ियाँ

Q.26 The provisions relating to the formation of new States and the alteration of areas, boundaries, or names of existing States are mentioned under which Article of the Indian Constitution?

नए राज्यों के गठन और मौजूदा राज्यों के क्षेत्रों, सीमाओं या नामों में परिवर्तन से संबंधित प्रावधानों का उल्लेख भारतीय संविधान के किस अनुच्छेद के अंतर्गत किया गया है?

(1) Article 3 / अनुच्छेद 3 ✔

(2) Article 2 / अनुच्छेद 2

(3) Article 5 / अनुच्छेद 5

(4) Article 4 / अनुच्छेद 4

Q.27 Which Indian season is known for retreating monsoons and cyclonic rainfall along the Tamil Nadu coast?

कौन-सी भारतीय ऋतु लौटते मानसून और तमिलनाडु तट पर चक्रवाती वर्षा के लिए जानी जाती है?

(1) Summer / ग्रीष्म ऋतु

(2) Southwest monsoon / दक्षिण-पश्चिम मानसून ✔

(3) Winter / शीत ऋतु

(4) Post-monsoon / मानसून-पश्चात ऋतु

Q.28 Tooth decay starts when the pH of mouth is lower than _____.

दाँतों का क्षय तब शुरू होता है जब मुँह का pH _____ से कम हो जाता है।

(1) 6.7

(2) 6.4

(3) 7.5

(4) 5.5 ✔

Q.29 Which Article empowers the State Legislatures to establish tribunals for subjects under their jurisdiction?

कौन-सा अनुच्छेद राज्य विधानमंडलों को उनके अधिकार क्षेत्र के अंतर्गत आने वाले विषयों के लिए अधिकरण स्थापित करने का अधिकार देता है?

(1) Article 323B / अनुच्छेद 323B ✔

(2) Article 324 / अनुच्छेद 324

(3) Article 323A / अनुच्छेद 323A

(4) Article 311 / अनुच्छेद 311

Q.30 Article 323 A of Indian Constitution is concerned with establishment of which type of tribunals?

भारतीय संविधान का अनुच्छेद 323 A किस प्रकार के अधिकरणों की स्थापना से संबंधित है?

(1) Tax tribunals / कर अधिकरण

(2) Administrative tribunals / प्रशासनिक अधिकरण ✔

(3) Criminal tribunals / आपराधिक अधिकरण

(4) Civil tribunals / सिविल अधिकरण

Q.31 Which island in India is known for hosting the only active coral reef formation in the Arabian Sea?
भारत का कौन-सा द्वीप अरब सागर में एकमात्र सक्रिय प्रवाल भित्ति संरचना के लिए जाना जाता है?

(1) North Sentinel Island / नॉर्थ सेंटिनल द्वीप
(2) Havelock Island / हैवलॉक द्वीप
(3) **Kavaratti Island / कवरत्ती द्वीप ✔**
(4) Barren Island / बैरन द्वीप

Q.32 As of November 2025, who is the Chairperson of the National Human Rights Commission of India?
नवंबर 2025 तक, भारत के राष्ट्रीय मानवाधिकार आयोग के अध्यक्ष कौन हैं?

(1) Mandhata Sitaram Murti / मंधाता सीताराम मूर्ति
(2) **V. Ramasubramanian / वी. रामासुब्रमण्यन ✔**
(3) Vijaya Bharathi Sayani / विजया भारती सयानी
(4) Preeti Sudan / प्रीति सूदन

Q.33 'Why I Am an Atheist' is an autobiography of which Indian revolutionary?
'मैं नास्तिक क्यों हूँ' (Why I Am an Atheist) किस भारतीय क्रांतिकारी की आत्मकथा है?

(1) Bal Gangadhar Tilak / बाल गंगाधर तिलक
(2) Chandrashekhar Azad / चंद्रशेखर आज़ाद
(3) **Bhagat Singh / भगत सिंह ✔**
(4) Rani Laxmi Bai / रानी लक्ष्मीबाई

Q.34 Who founded the Servants of India Society in 1905 to train workers for public service?
लोक सेवा के लिए कार्यकर्ताओं को प्रशिक्षित करने हेतु 1905 में सर्वेंट्स ऑफ इंडिया सोसाइटी की स्थापना किसने की?

(1) Bal Gangadhar Tilak / बाल गंगाधर तिलक
(2) M. G. Ranade / एम. जी. रानाडे
(3) Dadabhai Naoroji / दादाभाई नौरोजी
(4) **Gopal Krishna Gokhale / गोपाल कृष्ण गोखले ✔**

Q.35 Which is the first book of Theravada Vinaya Pitaka that contains the basic training rules for monks and nuns along with the 'origin story' for each one?
थेरवाद विनय पिटक की वह पहली पुस्तक कौन-सी है, जिसमें भिक्षुओं और भिक्षुणियों के लिए मूल प्रशिक्षण नियम, प्रत्येक की 'उत्पत्ति कथा' के साथ, दिए गए हैं?

(1) Buddhavamsa / बुद्धवंश
(2) Samyutta / संयुत्त
(3) **Suttavibhanga / सुत्तविभंग ✔**
(4) Itivuttaka / इतिवुत्तक

Q.36 Which of the following statements accurately describes the function of the appendix in the human body?
निम्नलिखित में से कौन-सा कथन मानव शरीर में अपेंडिक्स (परिशेषिका) के कार्य का सटीक वर्णन करता है?

(1) Functions as a vestigial structure with no known physiological significance / बिना किसी ज्ञात शारीरिक महत्व के एक अवशेषी संरचना के रूप में कार्य करता है
(2) Plays a crucial role in digestion by secreting enzymes / एंजाइम स्रावित करके पाचन में महत्वपूर्ण भूमिका निभाता है
(3) **Serves as a reservoir for beneficial gut bacteria / लाभकारी आंत्र जीवाणुओं के लिए भंडार के रूप में कार्य करता है ✔**
(4) Acts as a storage organ for excess nutrients / अतिरिक्त पोषक तत्वों के लिए भंडारण अंग के रूप में कार्य करता है

Q.37 Sentinel tribes are an indigenous people found in:

सेंटिनल जनजातियाँ एक स्वदेशी लोग हैं, जो कहाँ पाए जाते हैं?

(1) Odisha / ओडिशा

(2) **the Andaman islands / अंडमान द्वीप समूह ✔**

(3) Lakshadweep / लक्षद्वीप

(4) Jharkhand / झारखंड

Q.38 All are equal before the law refers to which principle of the Preamble?

कानून के समक्ष सभी समान हैं, यह प्रस्तावना के किस सिद्धांत को संदर्भित करता है?

(1) Republic / गणराज्य

(2) **Equality / समानता ✔**

(3) Liberty / स्वतंत्रता

(4) Justice / न्याय

Q.39 The Council of Ministers at state level shall collectively be responsible to the State _____.

राज्य स्तर पर मंत्रिपरिषद सामूहिक रूप से राज्य की _____ के प्रति उत्तरदायी होगी।

(1) Legislative Council / विधान परिषद

(2) Governor / राज्यपाल

(3) Chief Minister / मुख्यमंत्री

(4) **Legislative Assembly / विधान सभा ✔**

Q.40 Which of the following Buddhist literatures is non-canonical, wherein stories relating to the former births of the Buddha are narrated?

निम्नलिखित में से कौन-सा बौद्ध साहित्य गैर-विहित (non-canonical) है, जिसमें बुद्ध के पूर्व जन्मों से संबंधित कथाएँ वर्णित हैं?

(1) Vinaya Pitaka / विनय पिटक

(2) Abhidhamma Pitaka / अभिधम्म पिटक

(3) **Jataka Katha / जातक कथा ✔**

(4) Sutta Pitaka / सुत्त पिटक

General intelligence and Reasoning Ability

Q.41 In a certain code language, 'ROME' is coded as '6735' and 'MEAR' is coded as '5863'.
What is the code for 'A' in the given code language?

एक निश्चित कूट भाषा में, 'ROME' को '6735' और 'MEAR' को '5863' के रूप में कूटबद्ध किया जाता है।
दी गई कूट भाषा में 'A' के लिए कूट क्या है?

(1) 3

(2) 5

(3) **8 ✔**

(4) 6

Q.42 Refer to the following number, symbol series and answer the question that follows.
Counting to be done from left to right only. All numbers are single digit numbers only.
(Left) Ω 6 & 2 # 9 @ 4 ^ 8 * 5 ! 3 @ 1 7 % 1 $ 3 (Right)
How many such symbols are there, each of which is immediately preceded by an odd number but not immediately followed by an odd number?

निम्नलिखित संख्या, प्रतीक श्रृंखला का संदर्भ लें और उसके बाद आने वाले प्रश्न का उत्तर दें।
गिनती केवल बाएँ से दाएँ की जानी है। सभी संख्याएँ केवल एक अंक वाली संख्याएँ हैं।
(बाएँ) Ω 6 & 2 # 9 @ 4 ^ 8 * 5 ! 3 @ 1 7 % 1 $ 3 (दाएँ)
ऐसे कितने प्रतीक हैं, जिनमें से प्रत्येक के ठीक पहले एक विषम संख्या है, लेकिन ठीक बाद एक विषम संख्या नहीं है?

(1) Two / दो
(2) Four / चार
(3) Three / तीन
(4) **One / एक ✔**

Q.43 G, R, O, W, N and S live on six different floors of the same building. The lowermost floor in the building is numbered 1, the floor above it, number 2 and so on till the topmost floor is numbered 6. S lives on floor numbered 4. Only two people live between S and N. Only R lives between S and W. G lives immediately below S. Who lives on floor numbered 2?

G, R, O, W, N और S एक ही इमारत की छह अलग-अलग मंज़िलों पर रहते हैं। इमारत की सबसे निचली मंज़िल की संख्या 1 है, उसके ऊपर वाली मंज़िल की संख्या 2 है और इसी प्रकार सबसे ऊपरी मंज़िल की संख्या 6 है। S मंज़िल संख्या 4 पर रहता है। S और N के बीच केवल दो व्यक्ति रहते हैं। S और W के बीच केवल R रहता है। G, S के ठीक नीचे रहता है। मंज़िल संख्या 2 पर कौन रहता है?

(1) **O ✔**
(2) S
(3) G
(4) W

Q.44 Each of B, A, R, C, O, D and E has an exam on a different day of a week starting from Monday and ending on Sunday of the same week. O has exam on Friday. Only two people have exam between C and O. Only four people have exam between D and C. B has exam immediately after A. R doesn't have exam on Monday. How many people have exam between R and E?

B, A, R, C, O, D और E में से प्रत्येक की परीक्षा एक ही सप्ताह के अलग-अलग दिन है, जो सोमवार से शुरू होकर उसी सप्ताह के रविवार को समाप्त होता है। O की परीक्षा शुक्रवार को है। C और O के बीच केवल दो व्यक्तियों की परीक्षा है। D और C के बीच केवल चार व्यक्तियों की परीक्षा है। B की परीक्षा A के ठीक बाद है। R की परीक्षा सोमवार को नहीं है। R और E के बीच कितने व्यक्तियों की परीक्षा है?

(1) Three / तीन
(2) **Four / चार ✔**
(3) Two / दो
(4) One / एक

Q.45 Refer to the given letter series and answer the question that follows. Counting to be done from left to right only.
(Left) B K D A A Z U M S Q H Z U L E M P Q U (Right)
How many such vowels are there, each of which is immediately preceded by a consonant and also immediately followed by a consonant?

दी गई अक्षर श्रृंखला का संदर्भ लें और उसके बाद आने वाले प्रश्न का उत्तर दें। गिनती केवल बाएँ से दाएँ की जानी है।
(बाएँ) B K D A A Z U M S Q H Z U L E M P Q U (दाएँ)
ऐसे कितने स्वर हैं, जिनमें से प्रत्येक के ठीक पहले एक व्यंजन है और ठीक बाद भी एक व्यंजन है?

(1) One / एक
(2) Four / चार
(3) Three / तीन ✔
(4) Two / दो

Q.46 In a certain code language, 'ROAD' is coded as '4591' and 'DOSA' is coded as '1759'.
What is the code for 'S' in the given code language?

एक निश्चित कूट भाषा में, 'ROAD' को '4591' और 'DOSA' को '1759' के रूप में कूटबद्ध किया जाता है।
दी गई कूट भाषा में 'S' के लिए कूट क्या है?

(1) 7 ✔
(2) 5
(3) 1
(4) 9

Q.47 Six people P, Q, R, S, T and U are sitting around a circular table facing towards the centre of the table. There are exactly two people between S and T.
Q sits to the immediate left of T. R sits second to right of T. U sits second to right of Q. What is the position of P with respect to Q?

छह व्यक्ति P, Q, R, S, T और U एक वृत्ताकार मेज़ के चारों ओर मेज़ के केंद्र की ओर मुख करके बैठे हैं। S और T के बीच ठीक दो व्यक्ति हैं। Q, T के ठीक बाएँ बैठा है। R, T के दाएँ से दूसरे स्थान पर बैठा है। U, Q के दाएँ से दूसरे स्थान पर बैठा है। Q के सापेक्ष P का स्थान क्या है?

(1) Second to the left / बाएँ से दूसरा
(2) Immediate left / ठीक बाएँ ✔
(3) Second to the right / दाएँ से दूसरा
(4) Immediate right / ठीक दाएँ

Q.48 G, R, O, W, N and S live on six different floors of the same building. The lowermost floor in the building is numbered 1, the floor above it, number 2 and so on till the topmost floor is numbered 6. Only R lives above O. N lives immediately below O. Only G lives below W. Who lives on floor numbered 3?

G, R, O, W, N और S एक ही इमारत की छह अलग-अलग मंज़िलों पर रहते हैं। इमारत की सबसे निचली मंज़िल की संख्या 1 है, उसके ऊपर वाली मंज़िल की संख्या 2 है और इसी प्रकार सबसे ऊपरी मंज़िल की संख्या 6 है। O के ऊपर केवल R रहता है। N, O के ठीक नीचे रहता है। W के नीचे केवल G रहता है। मंज़िल संख्या 3 पर कौन रहता है?

(1) S ✔
(2) G
(3) O
(4) R

Q.49 Refer to the following letter, number, symbol series and answer the question that follows. All numbers are single digit numbers only. Counting to be done from left to right only.
(Left) ? 2 2 J 7 X 8 8 Y F / B H \ F B A Y P 8 2 D % Y (Right)
How many such symbols are there, each of which is immediately preceded by a letter and also immediately followed by a number?

निम्नलिखित अक्षर, संख्या, प्रतीक श्रृंखला का संदर्भ लें और उसके बाद आने वाले प्रश्न का उत्तर दें। सभी संख्याएँ केवल एक अंक वाली संख्याएँ हैं। गिनती केवल बाएँ से दाएँ की जानी है।
(बाएँ) ? 2 2 J 7 X 8 8 Y F / B H \ F B A Y P 8 2 D % Y (दाएँ)
ऐसे कितने प्रतीक हैं, जिनमें से प्रत्येक के ठीक पहले एक अक्षर है और ठीक बाद एक संख्या है?

(1) None / एक भी नहीं ✔
(2) Three / तीन
(3) One / एक
(4) Two / दो

Q.50 Seven people, S, L, I, P, E, R and D are sitting in a row, facing north. No one sits to the left of L. Only four people sit between L and I. Only three people sit to the right of R.
D sits to the immediate left of S. E is not an immediate neighbor of R. Who sits at the rightmost end of the line?

सात व्यक्ति S, L, I, P, E, R और D एक पंक्ति में उत्तर की ओर मुख करके बैठे हैं। L के बाईं ओर कोई नहीं बैठा है। L और I के बीच केवल चार व्यक्ति बैठे हैं। R के दाईं ओर केवल तीन व्यक्ति बैठे हैं।
D, S के ठीक बाएँ बैठा है। E, R का निकटतम पड़ोसी नहीं है। पंक्ति के सबसे दाएँ छोर पर कौन बैठा है?

(1) I
(2) S
(3) E ✔
(4) P

Q.51 Refer to the following letter, number and symbol series and answer the question that follows. All numbers are single-digit numbers only. Counting to be done from left to right only.
(Left) ^ J G H Q $ W U X 7 & 5 P 2 S B 6 8 L 4 J M R $ (Right)
How many such numbers are there, each of which is immediately preceded by a letter and also immediately followed by a symbol?

निम्नलिखित अक्षर, संख्या और प्रतीक श्रृंखला का संदर्भ लें और उसके बाद आने वाले प्रश्न का उत्तर दें। सभी संख्याएँ केवल एक अंक वाली संख्याएँ हैं। गिनती केवल बाएँ से दाएँ की जानी है।
(बाएँ) ^ J G H Q $ W U X 7 & 5 P 2 S B 6 8 L 4 J M R $ (दाएँ)
ऐसी कितनी संख्याएँ हैं, जिनमें से प्रत्येक के ठीक पहले एक अक्षर है और ठीक बाद एक प्रतीक है?

(1) None / एक भी नहीं
(2) Two / दो
(3) One / एक ✔
(4) Three / तीन

Q.52 Refer to the following number series and answer the question that follows (all numbers are single-digit numbers only). Counting to be done from left to right only.
(Left) 7 1 5 6 9 3 7 8 4 3 8 5 2 7 4 1 6 2 4 1 5 7 3 7 4 9 (Right)
How many such odd numbers are there, each of which is immediately preceded by an even number and also immediately followed by an odd number?
निम्नलिखित संख्या श्रृंखला का संदर्भ लें और उसके बाद आने वाले प्रश्न का उत्तर दें (सभी संख्याएँ केवल एक अंक वाली संख्याएँ हैं)। गिनती केवल बाएँ से दाएँ की जानी है।
(बाएँ) 7 1 5 6 9 3 7 8 4 3 8 5 2 7 4 1 6 2 4 1 5 7 3 7 4 9 (दाएँ)
ऐसी कितनी विषम संख्याएँ हैं, जिनमें से प्रत्येक के ठीक पहले एक सम संख्या है और ठीक बाद एक विषम संख्या है?

(1) Two / दो ✔
(2) Three / तीन
(3) Four / चार
(4) One / एक

Q.53 BFAC is related to HLGI in a certain way based on the English alphabetical order. In the same way, DHCE is related to JNIK. To which of the following is FJEG related, following the same logic?
अंग्रेज़ी वर्णमाला क्रम के आधार पर BFAC एक निश्चित प्रकार से HLGI से संबंधित है। उसी प्रकार, DHCE, JNIK से संबंधित है। समान तर्क का अनुसरण करते हुए, FJEG निम्नलिखित में से किससे संबंधित है?

(1) PLMK
(2) PLKM
(3) LPMK
(4) LPKM ✔

Q.54 Select the pair which follows the same pattern as that followed by the two pairs given below. Both pairs follow the same pattern.
RTU : VXY PRS : TVW
उस युग्म का चयन करें जो उसी पैटर्न का अनुसरण करता है जिसका अनुसरण नीचे दिए गए दो युग्म करते हैं। दोनों युग्म एक ही पैटर्न का अनुसरण करते हैं।
RTU : VXY PRS : TVW

(1) IMO : KPS
(2) UXY : WZB
(3) DFG : HJK ✔
(4) HKN : MQT

Q.55 Refer to the following letter series and answer the question that follows. Counting to be done from left to right only.
(Left) B C B M P H U J I K R F C S E A S X F I P O (Right)
How many such consonants are there, each of which is immediately preceded by a vowel and also immediately followed by a vowel?
निम्नलिखित अक्षर श्रृंखला का संदर्भ लें और उसके बाद आने वाले प्रश्न का उत्तर दें। गिनती केवल बाएँ से दाएँ की जानी है।
(बाएँ) B C B M P H U J I K R F C S E A S X F I P O (दाएँ)
ऐसे कितने व्यंजन हैं, जिनमें से प्रत्येक के ठीक पहले एक स्वर है और ठीक बाद भी एक स्वर है?

(1) TWO / दो ✔
(2) NONE / एक भी नहीं
(3) THREE / तीन
(4) ONE / एक

Q.56 In a row of 241 students facing north, Mr. Lal is 69th from the left end. If Mr. Sam is 12th to the right of Mr. Lal, what is Mr. Sam's position from the right end of the line?

उत्तर की ओर मुख करके खड़े 241 विद्यार्थियों की एक पंक्ति में, श्री लाल बाएँ छोर से 69वें स्थान पर हैं। यदि श्री सैम, श्री लाल के दाईं ओर 12वें स्थान पर हैं, तो पंक्ति के दाएँ छोर से श्री सैम का स्थान क्या है?

(1) 172nd / 172वाँ

(2) 100th / 100वाँ

(3) 104th / 104वाँ

(4) 161st / 161वाँ ✔

Q.57 In a certain code language, 'ROAD' is coded as '9416' and 'DORM' is coded as '3691'.
What is the code for 'M' in the given code language?

एक निश्चित कूट भाषा में, 'ROAD' को '9416' और 'DORM' को '3691' के रूप में कूटबद्ध किया जाता है।
दी गई कूट भाषा में 'M' के लिए कूट क्या है?

(1) 1

(2) 6

(3) 3 ✔

(4) 9

Q.58 In a certain code language, 'A % B' means 'A is the father of B', 'A € B' means 'A is the wife of B', 'A ÷ B' means 'A is the daughter of B' and 'A ! B' means 'A is the brother of B'.
Based on the above, how is D related to X if 'D € E ! V ÷ W % X'?

एक निश्चित कूट भाषा में, 'A % B' का अर्थ है 'A, B का पिता है', 'A € B' का अर्थ है 'A, B की पत्नी है', 'A ÷ B' का अर्थ है 'A, B की पुत्री है' और 'A ! B' का अर्थ है 'A, B का भाई है'।
उपरोक्त के आधार पर, यदि 'D € E ! V ÷ W % X' है, तो D का X से क्या संबंध है?

(1) Wife / पत्नी

(2) Wife's father's sister / पत्नी के पिता की बहन

(3) Brother's wife / भाई की पत्नी ✔

(4) Sister / बहन

Q.59 Refer to the following letter series and answer the question that follows. Counting to be done from left to right only.
(Left) G T N S M E W X I G S T V M H L I C K C Z (Right)
How many such vowels are there, each of which is immediately preceded by a consonant and also immediately followed by a consonant?

निम्नलिखित अक्षर श्रृंखला का संदर्भ लें और उसके बाद आने वाले प्रश्न का उत्तर दें। गिनती केवल बाएँ से दाएँ की जानी है।
(बाएँ) G T N S M E W X I G S T V M H L I C K C Z (दाएँ)
ऐसे कितने स्वर हैं, जिनमें से प्रत्येक के ठीक पहले एक व्यंजन है और ठीक बाद भी एक व्यंजन है?

(1) Two / दो

(2) One / एक

(3) Three / तीन ✔

(4) None / एक भी नहीं

Q.60 In a certain code language, 'A ÷ B' means 'A is the sister of B', 'A ! B' means 'A is the brother of B', 'A % B' means 'A is the father of B' and 'A € B' means 'A is the wife of B'.
Based on the above, how is D related to X if 'D ÷ E € V % W ! X'?

एक निश्चित कूट भाषा में, 'A ÷ B' का अर्थ है 'A, B की बहन है', 'A ! B' का अर्थ है 'A, B का भाई है', 'A % B' का अर्थ है 'A, B का पिता है' और 'A € B' का अर्थ है 'A, B की पत्नी है'।
उपरोक्त के आधार पर, यदि 'D ÷ E € V % W ! X' है, तो D का X से क्या संबंध है?

(1) Mother / माता
(2) Mother's mother / माता की माता
(3) Sister / बहन
(4) **Mother's sister / माता की बहन ✔**

Q.61 If 1 is added to each even digit and 1 is subtracted from each odd digit in the number 8759462, then how many digits will appear more than once in the new number thus formed?

यदि संख्या 8759462 में प्रत्येक सम अंक में 1 जोड़ा जाए और प्रत्येक विषम अंक में से 1 घटाया जाए, तो इस प्रकार बनी नई संख्या में कितने अंक एक से अधिक बार आएँगे?

(1) Three / तीन
(2) Two / दो
(3) One / एक
(4) **None / एक भी नहीं ✔**

Q.62 Select the set in which the numbers are related in the same way as are the numbers of the following sets.
(NOTE: Operations should be performed on the whole numbers, without breaking down the numbers into their constituent digits. E.g. 13 – Operations on 13 such as adding to/subtracting from/multiplying with 13 can be performed. Breaking down 13 into 1 and 3 and then performing mathematical operations on 1 and 3 is not allowed.)
(88, 42, 149)
(63, 48, 130)

उस समुच्चय का चयन करें जिसमें संख्याएँ उसी प्रकार संबंधित हैं जिस प्रकार निम्नलिखित समुच्चयों की संख्याएँ संबंधित हैं।
(नोट: संक्रियाएँ पूर्ण संख्याओं पर की जानी चाहिए, संख्याओं को उनके घटक अंकों में तोड़े बिना। उदाहरण के लिए 13 – 13 पर संक्रियाएँ जैसे 13 में जोड़ना/13 में से घटाना/13 से गुणा करना आदि की जा सकती हैं। 13 को 1 और 3 में तोड़कर फिर 1 और 3 पर गणितीय संक्रियाएँ करने की अनुमति नहीं है।)
(88, 42, 149)
(63, 48, 130)

(1) (86, 55, 165)
(2) (77, 31, 154)
(3) **(91, 62, 172) ✔**
(4) (52, 26, 149)

Q.63 Select the set in which the numbers are related in the same way as are the numbers of the following sets.
(NOTE: Operations should be performed on the whole numbers, without breaking down the numbers into their constituent digits. E.g. 13 – Operations on 13 such as adding to/subtracting from/multiplying with 13 can be performed. Breaking down 13 into 1 and 3 and then performing mathematical operations on 1 and 3 is not allowed.)
(19, 722, 19)
(17, 578, 17)

उस समुच्चय का चयन करें जिसमें संख्याएँ उसी प्रकार संबंधित हैं जिस प्रकार निम्नलिखित समुच्चयों की संख्याएँ संबंधित हैं।
(नोट: संक्रियाएँ पूर्ण संख्याओं पर की जानी चाहिए, संख्याओं को उनके घटक अंकों में तोड़े बिना। उदाहरण के लिए 13 – 13 पर संक्रियाएँ जैसे 13 में जोड़ना/13 में से घटाना/13 से गुणा करना आदि की जा सकती हैं। 13 को 1 और 3 में तोड़कर फिर 1 और 3 पर गणितीय संक्रियाएँ करने की अनुमति नहीं है।)
(19, 722, 19)
(17, 578, 17)

(1) (16, 512, 16) ✔
(2) (18, 640, 18)
(3) (15, 450, 10)
(4) (14, 392, 7)

Q.64 If 'A' stands for '÷', 'B' stands for '×', 'C' stands for '+' and 'D' stands for '−', what will come in place of the question mark (?) in the following equation?
4 B 3 D 10 A 2 C 2 = ? D 13

यदि 'A' का अर्थ '÷', 'B' का अर्थ '×', 'C' का अर्थ '+' और 'D' का अर्थ '−' है, तो निम्नलिखित समीकरण में प्रश्न चिह्न (?) के स्थान पर क्या आएगा?
4 B 3 D 10 A 2 C 2 = ? D 13

(1) 22 ✔
(2) 24
(3) 26
(4) 20

Q.65 Based on the English alphabetical order, three of the following four are alike in a certain way and thus form a group. Which is the one that does not belong to that group?
(Note: The odd one out is not based on the number of consonants/vowels or their position in the letter cluster.)

अंग्रेज़ी वर्णमाला क्रम के आधार पर, निम्नलिखित चार में से तीन किसी निश्चित प्रकार से एकसमान हैं और इस प्रकार एक समूह बनाते हैं। वह कौन-सा है जो उस समूह से संबंधित नहीं है?
(नोट: असंगत अक्षर-समूह, व्यंजनों/स्वरों की संख्या या अक्षर-समूह में उनके स्थान पर आधारित नहीं है।)

(1) ZUPN
(2) CXSQ
(3) BWPR ✔
(4) WRMK

QuickSarkari.com | WhatsApp Channel | Telegram: t.me/quick_sarkari

Q.66 Select the triad which follows the same pattern as that followed by the two triads given below. Both triads follow the same pattern.
RS - UV - XY HI - KL - NO
उस त्रिक का चयन करें जो उसी पैटर्न का अनुसरण करता है जिसका अनुसरण नीचे दिए गए दो त्रिक करते हैं। दोनों त्रिक एक ही पैटर्न का अनुसरण करते हैं।
RS - UV - XY HI - KL - NO

(1) YC - ZF - AH
(2) HK - LM - NP
(3) VX - WZ - YC
(4) DE - GH - JK ✔

Q.67 Based on the English alphabetical order, three of the following four letter-cluster pairs are alike in a certain way and thus form a group. Which is the one that does not belong to that group?
(Note: The odd one out is not based on the number of consonants/vowels or their position in the letter cluster.)
अंग्रेज़ी वर्णमाला क्रम के आधार पर, निम्नलिखित चार अक्षर-समूह युग्मों में से तीन किसी निश्चित प्रकार से एकसमान हैं और इस प्रकार एक समूह बनाते हैं। वह कौन-सा युग्म है जो उस समूह से संबंधित नहीं है?
(नोट: असंगत युग्म, व्यंजनों/स्वरों की संख्या या अक्षर-समूह में उनके स्थान पर आधारित नहीं है।)

(1) IM-EH
(2) EI-AC ✔
(3) KO-GJ
(4) GK-CF

Q.68 Below are given two sets of numbers. In each set of numbers, a certain mathematical operation on the first number results in the second number. Similarly, a certain mathematical operation on the second number results in the third number, and so on. Which of the given options follows the same set of operations as in the question?
(NOTE – A two/three digit number cannot be broken into individual digits for operations. E.g. if 37 is followed by 10, the operation cannot be 3+7 as a two-digit number cannot be broken into individual digits.)
10 - 20 - 30 - 35 ; 7 - 17 - 27 - 32
नीचे संख्याओं के दो समुच्चय दिए गए हैं। संख्याओं के प्रत्येक समुच्चय में, पहली संख्या पर एक निश्चित गणितीय संक्रिया करने से दूसरी संख्या प्राप्त होती है। इसी प्रकार, दूसरी संख्या पर एक निश्चित गणितीय संक्रिया करने से तीसरी संख्या प्राप्त होती है और इसी प्रकार आगे भी। दिए गए विकल्पों में से कौन-सा विकल्प संक्रियाओं के उसी समुच्चय का अनुसरण करता है जैसा कि प्रश्न में है?
(नोट – संक्रियाओं के लिए दो/तीन अंकों वाली संख्या को अलग-अलग अंकों में नहीं तोड़ा जा सकता है। उदाहरण के लिए, यदि 37 के बाद 10 आता है, तो संक्रिया 3+7 नहीं हो सकती, क्योंकि दो अंकों वाली संख्या को अलग-अलग अंकों में नहीं तोड़ा जा सकता है।)
10 - 20 - 30 - 35 ; 7 - 17 - 27 - 32

(1) 13 - 18 - 22 - 29
(2) 50 - 60 - 70 - 75 ✔
(3) 8 - 18 - 28 - 39
(4) 6 - 16 - 36 - 45

Q.69 If 'A' stands for '÷', 'B' stands for '×', 'C' stands for '+' and 'D' stands for '−', what will come in place of question mark '?' in the following equation?
7 B 7 C 4 A 4 D 27 = ?
यदि 'A' का अर्थ '÷', 'B' का अर्थ '×', 'C' का अर्थ '+' और 'D' का अर्थ '−' है, तो निम्नलिखित समीकरण में प्रश्न चिह्न '?' के स्थान पर क्या आएगा?
7 B 7 C 4 A 4 D 27 = ?

(1) 21
(2) **23 ✔**
(3) 24
(4) 25

Q.70 Which of the following letter-number clusters will replace the question mark (?) in the given series to make it logically complete?
CTT 5 HPR −10 MLP 20 RHN −40 ?
निम्नलिखित में से कौन-सा अक्षर-संख्या समूह दी गई श्रृंखला में प्रश्न चिह्न (?) का स्थान लेकर उसे तार्किक रूप से पूर्ण करेगा?
CTT 5 HPR −10 MLP 20 RHN −40 ?

(1) LKP 78
(2) NBV 67
(3) NNM 70
(4) **WDL 80 ✔**

Q.71 Based on the English alphabetical order, three of the following four letter-cluster pairs are alike in a certain way and thus form a group. Which is the one that does not belong to that group?
(Note: The odd one out is not based on the number of consonants/vowels or their position in the letter cluster.)
अंग्रेज़ी वर्णमाला क्रम के आधार पर, निम्नलिखित चार अक्षर-समूह युग्मों में से तीन किसी निश्चित प्रकार से एकसमान हैं और इस प्रकार एक समूह बनाते हैं। वह कौन-सा युग्म है जो उस समूह से संबंधित नहीं है?
(नोट: असंगत युग्म, व्यंजनों/स्वरों की संख्या या अक्षर-समूह में उनके स्थान पर आधारित नहीं है।)

(1) PQ–ST
(2) MN–PQ
(3) **KL–OP ✔**
(4) DE–GH

Q.72 What should come in place of ? in the given series?
48 50 51 53 54 ?
दी गई श्रृंखला में ? के स्थान पर क्या आना चाहिए?
48 50 51 53 54 ?

(1) 57
(2) 58
(3) **56 ✔**
(4) 55

Q.73 If 1 is subtracted from each even digit and 1 is added to each odd digit in the number 234681375472, what will be the sum of the digits which are second from the left and second from the right?

यदि संख्या 234681375472 में प्रत्येक सम अंक में से 1 घटाया जाए और प्रत्येक विषम अंक में 1 जोड़ा जाए, तो बाएँ से दूसरे और दाएँ से दूसरे अंकों का योग क्या होगा?

(1) 10
(2) 13
(3) **12** ✔
(4) 11

Q.74 What should come in place of ? in the given series?
23 30 45 68 99 ?

दी गई श्रृंखला में ? के स्थान पर क्या आना चाहिए?
23 30 45 68 99 ?

(1) 140
(2) 137
(3) **138** ✔
(4) 139

Q.75 If 1 is added to each odd digit and 2 is subtracted from each even digit in the number 546834681357, what will be the sum of the digits which are second from the left and second from the right?

यदि संख्या 546834681357 में प्रत्येक विषम अंक में 1 जोड़ा जाए और प्रत्येक सम अंक में से 2 घटाया जाए, तो बाएँ से दूसरे और दाएँ से दूसरे अंकों का योग क्या होगा?

(1) 9
(2) 6
(3) **8** ✔
(4) 7

Q.76 Select the correct mirror image of the given combination when the mirror is placed at 'PQ' as shown below.



जब दर्पण को नीचे दर्शाए अनुसार 'PQ' पर रखा जाता है, तो दिए गए संयोजन की सही दर्पण छवि का चयन करें।

(1) 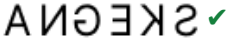 ✔
(2) 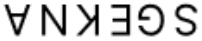
(3) 
(4) 

Q.77 28 is related to 86 following a certain logic. Following the same logic, 32 is related to 98. To which of the following is 45 related, following the same logic?
(NOTE : Operations should be performed on the whole numbers, without breaking down the numbers into its constituent digits. E.g. 13 – Operations on 13 such as adding /subtracting /multiplying etc. to 13 can be performed. Breaking down 13 into 1 and 3 and then performing mathematical operations on 1 and 3 is not allowed.)

एक निश्चित तर्क का अनुसरण करते हुए 28, 86 से संबंधित है। उसी तर्क का अनुसरण करते हुए, 32, 98 से संबंधित है। उसी तर्क का अनुसरण करते हुए, 45 निम्नलिखित में से किससे संबंधित है?
(नोट : संक्रियाएँ पूर्ण संख्याओं पर की जानी चाहिए, संख्याओं को उनके घटक अंकों में तोड़े बिना। उदाहरण के लिए 13 – 13 पर संक्रियाएँ जैसे 13 में जोड़ना/घटाना/गुणा करना आदि की जा सकती हैं। 13 को 1 और 3 में तोड़कर फिर 1 और 3 पर गणितीय संक्रियाएँ करने की अनुमति नहीं है।)

(1) 135
(2) 136
(3) **137** ✔
(4) 138

Q.78 What should come in place of ? in the given series?
83 75 60 38 9 ?

दी गई श्रृंखला में ? के स्थान पर क्या आना चाहिए?
83 75 60 38 9 ?

(1) -26
(2) -25
(3) -28
(4) **-27** ✔

Q.79 15 is related to 61 following a certain logic. Following the same logic, 22 is related to 89. To which of the following is 38 related, following the same logic?
(NOTE : Operations should be performed on the whole numbers, without breaking down the numbers into its constituent digits. E.g. 13 – Operations on 13 such as adding /subtracting /multiplying etc. to 13 can be performed. Breaking down 13 into 1 and 3 and then performing mathematical operations on 1 and 3 is not allowed.)

एक निश्चित तर्क का अनुसरण करते हुए 15, 61 से संबंधित है। उसी तर्क का अनुसरण करते हुए, 22, 89 से संबंधित है। उसी तर्क का अनुसरण करते हुए, 38 निम्नलिखित में से किससे संबंधित है?
(नोट : संक्रियाएँ पूर्ण संख्याओं पर की जानी चाहिए, संख्याओं को उनके घटक अंकों में तोड़े बिना। उदाहरण के लिए 13 – 13 पर संक्रियाएँ जैसे 13 में जोड़ना/घटाना/गुणा करना आदि की जा सकती हैं। 13 को 1 और 3 में तोड़कर फिर 1 और 3 पर गणितीय संक्रियाएँ करने की अनुमति नहीं है।)

(1) 151
(2) 161
(3) 157
(4) **153** ✔

QuickSarkari.com | WhatsApp Channel | Telegram: t.me/quick_sarkari

Q.80 Which of the following letter-number clusters will replace the question mark (?) in the given series to make it logically complete?
SLD 30 WPH 45 ATL 60 EXP 75 ?
निम्नलिखित में से कौन-सा अक्षर-संख्या समूह दी गई श्रृंखला में प्रश्न चिह्न (?) का स्थान लेकर उसे तार्किक रूप से पूर्ण करेगा?
SLD 30 WPH 45 ATL 60 EXP 75 ?

(1) ICT 85
(2) JCU 80
(3) **IBT 90 ✔**
(4) ICT 80

Arithmetical and Numerical Ability

Q.81 The number 1976853 is divisible by which of the following numbers?
संख्या 1976853 निम्नलिखित में से किस संख्या से विभाज्य है?

(1) 85
(2) 51
(3) 73
(4) **71 ✔**

Q.82 Simplify (18/5 + 17/9 of 9/5)/(11 − 13/9 ÷ 5/9)
(18/5 + 17/9 का 9/5)/(11 − 13/9 ÷ 5/9) को सरल कीजिए।

(1) 6/7
(2) **5/6 ✔**
(3) 8/11
(4) 1/14

Q.83 The arithmetic mean of the observations 23, 30, 84, 88, 81, 85, 58, 42 and 85 is:
प्रेक्षणों 23, 30, 84, 88, 81, 85, 58, 42 और 85 का समांतर माध्य है:

(1) 59
(2) 62
(3) 54
(4) **64 ✔**

Q.84 The monthly incomes of two friends, Gopal and Akshay, are in the ratio 6 : 7, respectively, and each of them saves ₹27,000 every month. If the ratio of their monthly expenditure is 2 : 3, find the monthly income of Gopal (in ₹).
दो मित्रों, गोपाल और अक्षय की मासिक आय का अनुपात क्रमशः 6 : 7 है, और उनमें से प्रत्येक हर महीने ₹27,000 बचाता है। यदि उनके मासिक व्यय का अनुपात 2 : 3 है, तो गोपाल की मासिक आय (₹ में) ज्ञात कीजिए।

(1) **40,500 ✔**
(2) 41,500
(3) 39,500
(4) 56,700

Q.85 If $a = 2^3 \times 3^2 \times 5$ and $b = 2^2 \times 3 \times 7^2$, then which of the following statements is true?

यदि $a = 2^3 \times 3^2 \times 5$ और $b = 2^2 \times 3 \times 7^2$ है, तो निम्नलिखित में से कौन-सा कथन सत्य है?

(1) a and b are coprime numbers / a और b सह-अभाज्य संख्याएँ हैं

(2) HCF of a and b is $2^3 \times 3^2$ / a और b का HCF, $2^3 \times 3^2$ है

(3) **HCF of a and b is $2^2 \times 3$ / a और b का HCF, $2^2 \times 3$ है ✔**

(4) LCM of a and b is $2^2 \times 3 \times 5 \times 7^2$ / a और b का LCM, $2^2 \times 3 \times 5 \times 7^2$ है

Q.86 Three pieces of ribbon, measuring 84 cm, 108 cm, and 132 cm, are to be cut into smaller pieces of equal length, without any ribbon left. What is the maximum possible length of each smaller piece?

84 cm, 108 cm और 132 cm माप वाले रिबन के तीन टुकड़ों को बिना कोई रिबन बचाए समान लंबाई के छोटे टुकड़ों में काटा जाना है। प्रत्येक छोटे टुकड़े की अधिकतम संभव लंबाई क्या है?

(1) 8 cm

(2) 18 cm

(3) 6 cm

(4) **12 cm ✔**

Q.87 Simplify:

132 ÷ 11 × 5 of 3 − 17 × 21 ÷ 7 + 3 of 5 × 4

सरल कीजिए:

132 ÷ 11 × 5 of 3 − 17 × 21 ÷ 7 + 3 of 5 × 4

(1) 181

(2) 199

(3) 171

(4) **189 ✔**

Q.88 By how much is 30% of 75 greater than 25% of 45?

75 का 30%, 45 के 25% से कितना अधिक है?

(1) **11.25 ✔**

(2) 8.25

(3) 13.25

(4) 6.25

Q.89 The number 450432 is divisible by which of the following numbers?

संख्या 450432 निम्नलिखित में से किस संख्या से विभाज्य है?

(1) **23 ✔**

(2) 40

(3) 7

(4) 21

Q.90 Find the value of m for which it satisfies $(25/4)^4 \times (4/25)^{15} \times (25/4)^{11} = (4/25)^{7m + 15}$

m का वह मान ज्ञात कीजिए जिसके लिए यह संतुष्ट होता है $(25/4)^4 \times (4/25)^{15} \times (25/4)^{11} = (4/25)^{7m + 15}$

(1) −12/7

(2) −8/7

(3) −20/7

(4) **−15/7 ✔**

QuickSarkari.com | WhatsApp Channel | Telegram: t.me/quick_sarkari

Q.91 A chemist has two solutions of acid: Solution A has a 15% acid concentration, and Solution B has an 80% acid concentration. He wants to create a 60% acid solution.
Find the ratio in which Solution A and Solution B must be mixed.

एक रसायनज्ञ के पास अम्ल के दो विलयन हैं: विलयन A में 15% अम्ल सांद्रता है, और विलयन B में 80% अम्ल सांद्रता है। वह 60% अम्ल विलयन बनाना चाहता है।
वह अनुपात ज्ञात कीजिए जिसमें विलयन A और विलयन B को मिलाया जाना चाहिए।

(1) 5:4
(2) 4:9 ✔
(3) 3:2
(4) 2:3

Q.92 In what ratio must a grocer mix two varieties of wheat worth ₹61 per kg and ₹109 per kg, so that if he sells the mixture at ₹120 per kg, he may gain 20%?

एक पंसारी को ₹61 प्रति kg और ₹109 प्रति kg मूल्य वाली गेहूँ की दो किस्मों को किस अनुपात में मिलाना चाहिए, ताकि यदि वह मिश्रण को ₹120 प्रति kg पर बेचे, तो उसे 20% का लाभ हो?

(1) 3 : 13 ✔
(2) 13 : 18
(3) 5 : 12
(4) 5 : 14

Q.93 Find the simple interest (in ₹) on ₹5,000 as a sum borrowed at 5% per year rate of interest for 5 years.

5 वर्ष के लिए 5% वार्षिक ब्याज दर पर उधार ली गई ₹5,000 की राशि पर साधारण ब्याज (₹ में) ज्ञात कीजिए।

(1) 1,190
(2) 1,210
(3) 1,290
(4) 1,250 ✔

QuickSarkari.com | WhatsApp Channel | Telegram: t.me/quick_sarkari

Q.94 The line graph below shows the number of students who participated in various inter-school competitions from January to June.

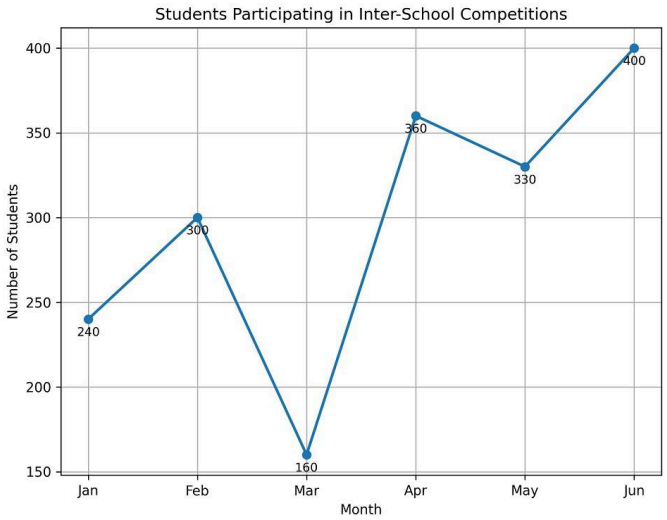

If the average number of students per month is taken as a benchmark, determine how many months exceed this average.

नीचे दिया गया रेखा ग्राफ जनवरी से जून तक विभिन्न अंतर-विद्यालय प्रतियोगिताओं में भाग लेने वाले विद्यार्थियों की संख्या दर्शाता है। यदि प्रति माह विद्यार्थियों की औसत संख्या को मानक के रूप में लिया जाए, तो ज्ञात कीजिए कि कितने महीने इस औसत से अधिक हैं।

(1) 5

(2) 2

(3) 4 ✔

(4) 3

QuickSarkari.com | WhatsApp Channel | Telegram: t.me/quick_sarkari

Q.95 Study the following pie-chart and answer the following question.
The pie chart shows the percentage distribution of employees in six different professions.
Total number of employees = 26,800

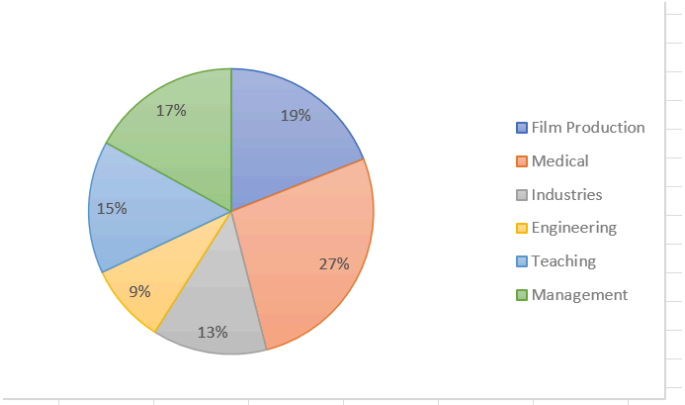

What is the difference between the total number of employees in teaching and medical professions together and the number of employees in the management profession?

निम्नलिखित पाई-चार्ट का अध्ययन करें और निम्नलिखित प्रश्न का उत्तर दें।
पाई चार्ट छह विभिन्न व्यवसायों में कर्मचारियों का प्रतिशत वितरण दर्शाता है।
कर्मचारियों की कुल संख्या = 26,800
शिक्षण और चिकित्सा व्यवसायों में मिलाकर कर्मचारियों की कुल संख्या तथा प्रबंधन व्यवसाय में कर्मचारियों की संख्या के बीच कितना अंतर है?

(1) 6820
(2) **6700** ✔
(3) 6980
(4) 6910

Q.96 Ashish has two grandsons, Ketan and Mahesh. 10-year-old Ketan gets some money from Ashish's wealth, and 11-year-old Mahesh gets the rest of the money. However, both will receive the money only when they turn 24 years old. Until then, the money is kept in a bank earning interest at 5% compounded annually. When both turn 24, they receive the same amount. How much had Ashish given Mahesh (in ₹) initially, if the total money with Ashish was ₹24,600?

आशीष के दो पोते हैं, केतन और महेश। 10 वर्षीय केतन को आशीष की संपत्ति में से कुछ धन मिलता है, और 11 वर्षीय महेश को शेष धन मिलता है। हालाँकि, दोनों को धन तभी मिलेगा जब वे 24 वर्ष के हो जाएँगे। तब तक, धन एक बैंक में रखा जाता है, जिस पर वार्षिक रूप से संयोजित 5% चक्रवृद्धि ब्याज मिलता है। जब दोनों 24 वर्ष के हो जाते हैं, तो उन्हें समान राशि प्राप्त होती है। यदि आशीष के पास कुल धन ₹24,600 था, तो आशीष ने आरंभ में महेश को कितना धन (₹ में) दिया था?

(1) **12,600** ✔
(2) 11,750
(3) 12,000
(4) 12,950

Q.97 Find the simplified value of $79^{-13} \div 79^{18} \times 79^{-17}$

$79^{-13} \div 79^{18} \times 79^{-17}$ का सरलीकृत मान ज्ञात कीजिए

(1) 79-41
(2) **79-48** ✔
(3) 79-49
(4) 79-53

Q.98 Baban distributed ₹23,100 between his two grandsons, 13-year-old Rakesh and 14- year-old Shivam, such that they get equal money when they turn 24 years old. Till then, the money is in a bank getting compound interest at 10% p.a. compounded annually. How much (in ₹) Baban deposited in the name of Shivam?

बबन ने ₹23,100 को अपने दो पोतों, 13 वर्षीय राकेश और 14 वर्षीय शिवम के बीच इस प्रकार बाँटा कि 24 वर्ष के होने पर उन्हें समान धन मिले। तब तक, धन एक बैंक में है, जिस पर वार्षिक रूप से संयोजित 10% वार्षिक चक्रवृद्धि ब्याज मिल रहा है। बबन ने शिवम के नाम पर कितनी राशि (₹ में) जमा की?

(1) 10,750
(2) 11,000
(3) 12,450
(4) **12,100** ✔

Q.99 The H.C.F. and the L.C.M. of two numbers are 21 and 315, respectively. If one of the numbers is 105, find the other one.

दो संख्याओं का म.स. (H.C.F.) और ल.स. (L.C.M.) क्रमशः 21 और 315 है। यदि उनमें से एक संख्या 105 है, तो दूसरी संख्या ज्ञात कीजिए।

(1) 130
(2) 154
(3) **63** ✔
(4) 65

Q.100 The average of five consecutive odd multiples of 17 is 119. Find the sum between the largest and smallest numbers.

17 के पाँच क्रमागत विषम गुणजों का औसत 119 है। सबसे बड़ी और सबसे छोटी संख्याओं का योग ज्ञात कीजिए।

(1) 232
(2) 282
(3) **238** ✔
(4) 218

Q.101 Divide ₹38,500 into three parts such that half of the first part, one-fourth of the second part, and one-eighth of the third part are equal. Find the first part (in ₹).

₹38,500 को तीन भागों में इस प्रकार विभाजित कीजिए कि पहले भाग का आधा, दूसरे भाग का एक-चौथाई और तीसरे भाग का एक-आठवाँ भाग बराबर हो। पहला भाग (₹ में) ज्ञात कीजिए।

(1) **5,500** ✔
(2) 5,800
(3) 5,200
(4) 5,600

Q.102 A boat running downstream covers a distance of 12 km in 2 hours while for covering the same distance upstream, it takes 4 hours. What is the speed of the boat in still water?

धारा के अनुकूल चलती हुई एक नाव 2 घंटे में 12 km की दूरी तय करती है, जबकि धारा के प्रतिकूल समान दूरी तय करने में उसे 4 घंटे लगते हैं। स्थिर जल में नाव की चाल क्या है?

(1) **4.5 km/h** ✔
(2) 4.15 km/h
(3) 5.12 km/h
(4) 5.22 km/h

QuickSarkari.com | WhatsApp Channel | Telegram: t.me/quick_sarkari

Q.103 The mean proportional between (2 + √2) and (8 + √32) is:

(2 + √2) और (8 + √32) का मध्यानुपाती है:

(1) 2√2 + 3

(2) 2√2 − 3

(3) 2√2 + 2

(4) **2√2 + 4 ✔**

Q.104 Find the volume of oil contained in a conical vessel having a radius of 14 cm and a height of 21 cm. (Use π = 22/7)

14 cm त्रिज्या और 21 cm ऊँचाई वाले एक शंक्वाकार पात्र में भरे तेल का आयतन ज्ञात कीजिए। (π = 22/7 का प्रयोग करें)

(1) 4322 cm^3

(2) 3312 cm^3

(3) 4612 cm^3

(4) **4312 cm^3 ✔**

Q.105 A retailer buys an item for ₹230 and spends ₹20 as overhead expenses. He sells the item for ₹360 and makes x% profit. The value of x is:

एक खुदरा विक्रेता एक वस्तु ₹230 में खरीदता है और ऊपरी खर्चों के रूप में ₹20 खर्च करता है। वह वस्तु को ₹360 में बेचता है और x% लाभ कमाता है। x का मान है:

(1) 34

(2) 24

(3) **44 ✔**

(4) 64

Q.106 The ratio of 45 hours:14 days is equivalent to:

45 घंटे : 14 दिन का अनुपात किसके समतुल्य है?

(1) 14:118

(2) 17:115

(3) **15:112 ✔**

(4) 18:119

Q.107 The circumference of the base of a cylindrical vessel is 200 cm, and its height is 44 cm. How many litres of water can it hold?

(Use π = 22/7)

एक बेलनाकार पात्र के आधार की परिधि 200 cm है, और उसकी ऊँचाई 44 cm है। इसमें कितने लीटर पानी आ सकता है?

(π = 22/7 का प्रयोग करें)

(1) 135

(2) 91

(3) **140 ✔**

(4) 94

Q.108 If the radius of a cylinder is doubled and its height is tripled, how many times larger will the new volume be, compared to the original volume?

यदि एक बेलन की त्रिज्या दोगुनी और उसकी ऊँचाई तिगुनी कर दी जाए, तो मूल आयतन की तुलना में नया आयतन कितने गुना बड़ा होगा?

(1) It will become 6 times larger / यह 6 गुना बड़ा हो जाएगा

(2) It will become 9 times larger / यह 9 गुना बड़ा हो जाएगा

(3) It will become 12 times larger / यह 12 गुना बड़ा हो जाएगा ✔

(4) It will become 3 times larger / यह 3 गुना बड़ा हो जाएगा

Q.109 If the length of each edge of a cube is doubled, how many times does its surface area becomes?

यदि एक घन के प्रत्येक किनारे की लंबाई दोगुनी कर दी जाए, तो उसका पृष्ठीय क्षेत्रफल कितने गुना हो जाता है?

(1) 6

(2) 2

(3) 4 ✔

(4) 8

Q.110 Find the price of oil contained in a conical vessel having a radius of 14 cm and a height of 21 cm, if oil costs ₹2 per cm^3. (Use π = 22/7)

यदि तेल का मूल्य ₹2 प्रति cm^3 है, तो 14 cm त्रिज्या और 21 cm ऊँचाई वाले एक शंक्वाकार पात्र में भरे तेल का मूल्य ज्ञात कीजिए। (प्रयोग करें π = 22/7)

(1) ₹7,624

(2) ₹8,634

(3) ₹8,644

(4) ₹8,624 ✔

Q.111 The time taken by two trains running in opposite direction to cross a pillar in the centre of a platform are 24 seconds and 20 seconds, respectively. The trains take 21 seconds to cross each other. Find the ratio of the speeds of the two trains.

विपरीत दिशाओं में चल रही दो रेलगाड़ियों द्वारा एक प्लेटफॉर्म के केंद्र में स्थित एक खंभे को पार करने में लिया गया समय क्रमशः 24 सेकंड और 20 सेकंड है। रेलगाड़ियाँ एक-दूसरे को 21 सेकंड में पार करती हैं। दोनों रेलगाड़ियों की चालों का अनुपात ज्ञात कीजिए।

(1) 1 : 3 ✔

(2) 4 : 1

(3) 3 : 2

(4) 2 : 5

Q.112 Two taps can fill a cistern in 3 hours and 67 hours, respectively. A third tap can empty it in 67 hours. How long (in hours) will it take to fill one-third of the empty cistern, if all the three taps are opened together?

दो नल एक टंकी को क्रमशः 3 घंटे और 67 घंटे में भर सकते हैं। एक तीसरा नल इसे 67 घंटे में खाली कर सकता है। यदि तीनों नल एक साथ खोल दिए जाएँ, तो खाली टंकी का एक-तिहाई भाग भरने में कितना समय (घंटों में) लगेगा?

(1) 1 ✔

(2) 4

(3) 2

(4) 3

Quick Sarkari

Q.113 A store offers successive discounts of 12% and 15% on a sweater. Find the selling price of the sweater after the discounts, if the marked price of the sweater is ₹6,000.

एक स्टोर एक स्वेटर पर 12% और 15% की क्रमिक छूट देता है। यदि स्वेटर का अंकित मूल्य ₹6,000 है, तो छूट के बाद स्वेटर का विक्रय मूल्य ज्ञात कीजिए।

(1) ₹4,288

(2) ₹4,444

(3) ₹4,488 ✔

(4) ₹4,422

Q.114 The base of a triangle is 12 cm and its height is 8 cm. Find the area of the triangle.

एक त्रिभुज का आधार 12 cm और उसकी ऊँचाई 8 cm है। त्रिभुज का क्षेत्रफल ज्ञात कीजिए।

(1) 24 cm^2

(2) 36 cm^2

(3) 42 cm^2

(4) 48 cm^2 ✔

Q.115 A table was bought for ₹3830 and a repairing charge of ₹950 was paid on it. It is sold at a profit of 32%, after a discount of 45% on its marked price. The marked price of the table is:

एक मेज़ ₹3830 में खरीदी गई और उस पर ₹950 का मरम्मत शुल्क दिया गया। इसे इसके अंकित मूल्य पर 45% की छूट देने के बाद 32% के लाभ पर बेचा जाता है। मेज़ का अंकित मूल्य है:

(1) ₹11,544

(2) ₹11,426

(3) ₹11,472 ✔

(4) ₹11,448

Q.116 A, B and C can do a piece of work in 3, 4 and 12 days respectively. How long (in days) will they take to do twice the same amount of work, working together?

A, B और C किसी काम को क्रमशः 3, 4 और 12 दिनों में कर सकते हैं। एक साथ मिलकर काम करते हुए, उसी काम की दोगुनी मात्रा को करने में उन्हें कितना समय (दिनों में) लगेगा?

(1) 4

(2) 9

(3) 3 ✔

(4) 6

Q.117 Find the length of the diagonal of a cube whose volume is 4913 cm^3.

उस घन के विकर्ण की लंबाई ज्ञात कीजिए जिसका आयतन 4913 cm^3 है।

(1) 17√5 cm

(2) 17√3 cm ✔

(3) 15√3 cm

(4) 15√5 cm

Q.118 A cyclic quadrilateral has side lengths 4 cm, 8 cm, 11 cm, and 13 cm. Find its area.

एक चक्रीय चतुर्भुज की भुजाओं की लंबाई 4 cm, 8 cm, 11 cm और 13 cm है। इसका क्षेत्रफल ज्ञात कीजिए।

(1) 64 cm^2

(2) 56 cm^2

(3) 84 cm^2

(4) **70 cm^2** ✔

Q.119 Arvind bought an article for ₹x. He sold it to Biru at a loss of 16%. Biru spent ₹174 on its transportation and sold it to Minu at a profit of 60%. If Minu bought it for ₹1,992, then what is the value of x?

अरविंद ने एक वस्तु ₹x में खरीदी। उसने इसे 16% की हानि पर बीरू को बेच दिया। बीरू ने इसके परिवहन पर ₹174 खर्च किए और इसे 60% के लाभ पर मीनू को बेच दिया। यदि मीनू ने इसे ₹1,992 में खरीदा, तो x का मान क्या है?

(1) 1,273

(2) 1,321

(3) **1,275** ✔

(4) 1,229

Q.120 Three friends P, Q, and R started a business, investing ₹4400, ₹2400, and ₹7000, respectively. After 4 months, P withdrew ₹520, Q withdrew ₹430, and R invested ₹550 more. At the end of the year, there was a profit of ₹21,000, out of which they donated 13%. What was R's profit share (in ₹)?

तीन मित्रों P, Q और R ने क्रमशः ₹4400, ₹2400 और ₹7000 का निवेश करके एक व्यवसाय शुरू किया। 4 महीने बाद, P ने ₹520 निकाल लिए, Q ने ₹430 निकाल लिए, और R ने ₹550 और निवेश किए। वर्ष के अंत में ₹21,000 का लाभ हुआ, जिसमें से उन्होंने 13% दान कर दिया। R का लाभ में हिस्सा (₹ में) कितना था?

(1) 9925

(2) 9959

(3) 9941

(4) **9945** ✔

Hindi Language and Comprehension

Q.121 'बहुत लोग हो जाएँ तो काम खराब हो जाता है' अर्थ के लिए सही लोकोक्ति क्या है?

(1) **बहुते जोगी मठ उजाड़** ✔

(2) बासी कढ़ी में उबाल आया

(3) फलूदा खाते दाँत टूटे तो टूटे

(4) मीठा मीठा गप कड़वा कड़वा थू

Q.122 बैठक में हिसाब किताब की जाँच करने वाले व्यक्ति ने पिछले वर्ष के खर्चों और आमदनी का विस्तृत हिसाब किताब प्रस्तुत किया। रेखांकित वाक्यांश के लिए सार्थक शब्द क्या है?

(1) अभिजात

(2) अनुच्चरित

(3) **अंकेक्षक** ✔

(4) उल्लिखित

QuickSarkari.com | WhatsApp Channel | Telegram: t.me/quick_sarkari

Q.123 निम्न में से सर्वोचित क्रिया शब्द से वाक्य का रिक्त स्थान पूर्ण करें-- बड़ों से उनका अनुभव ..... जीने का आधार बनता है।

(1) परखना

(2) देखना

(3) जानना ✔

(4) मानना

Q.124 ' जहाँ नदियों का मिलन हो ' वाक्यांश के लिए सार्थक शब्द कौन सा है?

(1) अगम

(2) सुगम

(3) संगम ✔

(4) दुर्गम

Q.125 समयवाचक क्रिया विशेषण से वाक्य पूर्ण करें – कामरान बहुत फुर्तीला है वह _____ काम पूरा कर लेता है

(1) एकदम

(2) तड़ातड़

(3) झटपट ✔

(4) अच्छी तरह

Q.126 'जो शोक करने योग्य न हो' वाक्यांश के लिए एक शब्द होगा -

(1) कृतज्ञ

(2) पार्थिव

(3) कृतघ्न

(4) अशोच्य ✔

Q.127 निम्नलिखित वाक्यों में उनके प्रथम तथा अन्तिम अंश संख्या 1 और 6 के अन्तर्गत दिए गए हैं। बीच वाले चार अंश (य), (र), (ल), (व) बिना क्रम के हैं। चारों अंशों को उचित क्रमानुसार व्यवस्थित कर सही विकल्प चुनिए।

(1) सकारात्मक सोच (य) ही जीवन का (र) जो हमारे (ल) मूल आधार है (व) जीवन को

(6) सार्थक बनाती है।

(1) र ल य व

(2) ल य र व

(3) व ल य र

(4) य ल र व ✔

Q.128 निम्नलिखित वाक्यांश के लिए सार्थक शब्द चुनियेभारत और यूरोप से संबंध

(1) भारोपीय ✔

(2) इंडिक

(3) भाखा

(4) संबंधनिरपेक्ष

Q.129 सुमित आज नहीं आयेगा। वाक्य में ..... क्रिया-विशेषण है।

दिए गए विकल्प में से क्रिया-विशेषण के उचित भेद को चुन कर वाक्य पूर्ण करें -

(1) रीतिवाचक

(2) परिमाणवाचक

(3) स्थानवाचक

(4) कालवाचक ✔

Q.130 'अपनी करनी पार उतरनी' लोकोक्ति का सही अर्थ है-

(1) मनुष्य को अपने कर्म के अनुसार ही फल मिलता है ✔

(2) अपनी इज्जत अपने हाथ होती है

(3) कार्य के विपरीत फल की अपेक्षा रखना व्यर्थ है

(4) अपने किये बिना काम नहीं होता।

Q.131 'भरी गगरिया चुपके जाय' लोकोक्ति का क्या अर्थ है?

(1) बुढ़ापे में अनेक कष्ट

(2) गागर में पानी भरना

(3) ज्ञानी आदमी गंभीर होता है ✔

(4) भूख लगी हो तो कोई नहीं होता

Q.132 दिए गए वाक्य में रिक्त स्थान के लिए उपयुक्त क्रिया-विशेषण चुनें।
यह बात ..... पूरे गाँव में फैल गई।

(1) अक्सर

(2) बहुत

(3) अधिक

(4) धीरे-धीरे ✔

Q.133 निम्नलिखित मुहावरे का अर्थ बताइएमीन मेख निकालना

(1) हार जाना

(2) कल्पना करना

(3) वश में करना

(4) त्रुटि निकालना ✔

Q.134 दिए गए वाक्य को सही क्रम में लगाइए- (1)वहाँ इतनी तेज़ ठंड पड़ी कि (2)मौत हो गई (3)तमाम छोटे-मोटे जानवरों की (4)उस ठंड में

(1) 1 2 3 4

(2) 4 2 1 3

(3) 1 4 3 2 ✔

(4) 4 1 2 3

Q.135 'कागज़ी घोड़े दौड़ाना' मुहावरे का क्या अर्थ है?

(1) कागज़ बेकार करना

(2) कागज़ से घोड़े बनाना

(3) झगड़ा होना

(4) केवल लिखा-पढ़ी करते रहना ✔

Q.136 रेखांकित कारक चिह्न के आधार पर कारक के उचित भेद का चुनाव करें- पक्षी पेड़ पर बसेरा करते हैं। वाक्य में ..... कारक है।

(1) अधिकरण कारक ✔

(2) करण कारक

(3) अपादान कारक

(4) संबंध कारक

Quick Sarkari

Q.137 दिए गए वाक्य में रिक्त स्थान के लिए उपयुक्त क्रिया चुनें।
कमरे की छत नीचे आ ..... ।

(1) पटकी
(2) **गिरी ✔**
(3) बैठी
(4) लेटी

Q.138 वह परीक्षा में ऐसे बैठा था जैसे उसका मन किसी ओर ना हो, इसलिए उसने अपने उत्तरपत्रिका में ध्यान भी नहीं दिया।
रेखांकित वाक्यांश के लिए सार्थक शब्द क्या है?

(1) अधिकृत
(2) प्राक्कथन
(3) प्रत्यागत
(4) **अन्यमनस्क ✔**

Q.139 यह ज़मीन मेरी है। वाक्य में ..... विशेषण है।
दिए गए विकल्प में से विशेषण के उचित भेद को चुन कर वाक्य पूर्ण करें -

(1) परिमाणवाचक
(2) गुणवाचक
(3) संख्यावाचक
(4) **सार्वनामिक ✔**

Q.140 'देह धरे के दंड हैं' लोकोक्ति का क्या अर्थ है?

(1) विश्राम करना
(2) **शरीर है तो कष्ट भी रहेगा ✔**
(3) केवल दिखावटी शान
(4) किसी को दंड देना

Q.141 निम्नलिखित वाक्य में रेखांकित शब्द का विलोम शब्द कौन सा है?
इस दुकान से उधार सामान लेना मना है।

(1) ज़्यादा
(2) कम
(3) जीर्ण
(4) **नकद ✔**

Q.142 आगामी महीनों में मौसम में परिवर्तन होने की संभावना है।
वाक्य में प्रयुक्त आगामी शब्द का विलोम क्या है।

(1) आसन्न
(2) **विगत ✔**
(3) संभावित
(4) निर्धारित

Q.143 जो बड़ों और गुरुजनों का आदर करता है, वह समाज में आदृत स्थान प्राप्त करता है।
वाक्य में प्रयुक्त आदृत शब्द का विलोम क्या है।

(1) **तिरस्कृत ✔**
(2) प्रतिष्ठित
(3) सम्मानित
(4) अर्णव

Q.144 मानसून के समय समुद्र की लहरें बहुत ऊँची हो जाती हैं।
वाक्य में प्रयुक्त समुद्र शब्द का पर्यायवाची क्या है?

(1) सौमित्र
(2) **अंबुधि ✔**
(3) उपद्रव
(4) व्याधि

Q.145 बदाम खाओ स्वस्थ रहो ।
उपरोक्त वाक्य के किस भाग में वर्तनी संबंधी अशुद्धिहै –

(1) स्वस्थ
(2) रहो
(3) खाओ
(4) **बदाम ✔**

Q.146 दिए गए वाक्य के किस भाग में त्रुटि है?
राष्ट्रिय भंडार में संगृहीत स्मृतियाँ हमारी सांस्कृतिक धरोहर को सुरक्षित रखती हैं।

(1) संगृहीत
(2) सांस्कृतिक
(3) सुरक्षित
(4) **राष्ट्रिय ✔**

Q.147 नीचे दिए गए रेखांकित शब्द के लिए उपयुक्त विलोम शब्द चुनकर रिक्त स्थान पूर्ण कीजिए।
"योग और प्राणायाम से व्यक्ति नीरुजता प्राप्त करता है, जबकि गलत खान-पान से _____ का सामना करना पड़ता है।"

(1) अभक्ष्य
(2) तंदुरुस्ती
(3) अपक्व
(4) **रुग्णता ✔**

Q.148 निम्नलिखित वाक्य में रेखांकित शब्द का पर्यायवाची शब्द कौन-सा है?
तुम्हारा पेशा उन्हें बहुत पसंद आया।

(1) घर
(2) कार्यालय
(3) पैसा
(4) **काम-काज ✔**

Q.149 दिए गए वाक्य के किस भाग में त्रुटि है?
इतिहासकार ने अभिलेखों की प्रतिलीपी के आधार पर राजवंश की वंशावली पुनर्निर्मित की।

(1) राजवंश
(2) **प्रतिलीपी ✔**
(3) पुनर्निर्मित
(4) अभिलेखों

QuickSarkari.com | WhatsApp Channel | Telegram: t.me/quick_sarkari

Q.150 दिए गए वाक्य के किस भाग में त्रुटि है?
सैकड़ों मल्लाह तुफान की चपेट में आ गए।

(1) आ गए।
(2) **तुफान की ✔**
(3) सैकड़ों मल्लाह
(4) चपेट में

Q.151

नीचे दिए गए गद्यांश को पढ़कर निम्नलिखित पाँच प्रश्नों के उत्तर दिए गए विकल्पों में से चुनें।
आज बड़े ही आनंद का दिन है कि इस छोटे से नगर बलिया में हम इतने मनुष्यों को बड़े उत्साह से एक स्थान पर देखते हैं। इस अभागे आलसी देश में जो कुछ हो जाए वही बहुत कुछ है। बनारस ऐसे-ऐसे बड़े नगरों में जब कुछ नहीं होता तो यह हम क्यों न कहेंगे कि बलिया में जो कुछ हमने देखा, वह बहुत ही प्रशंसा के योग्य है। इस उत्साह का मूल कारण जो हमने खोजा, तो प्रगट हो गया कि इस देश के भाग्य से आजकल यहाँ सारा समाज ही ऐसा एकत्र है। जहाँ रॉबर्ट साहब बहादुर जैसे कलेक्टर हों, वहाँ क्यों न ऐसा समाज हो। जिस देश और काल में ईश्वर ने अकबर को उत्पन्न किया था, उसी में अबुल फजल, बीरबल, टोडरमल को भी उत्पन्न किया। यहाँ रॉबर्ट साहब अकबर हैं, तो मुंशी चतुर्भुज सहाय, मुंशी बिहारीलाल साहब आदि अबुल फजल और टोडरमल हैं। हमारे हिंदुस्तानी लोग तो रेल की गाड़ी हैं। यद्यपि फर्स्ट क्लास, सेकेंड क्लास आदि गाड़ी बहुत अच्छी-अच्छी और बड़े-बड़े महसूल की इस ट्रेन में लगी हैं पर बिना इंजिन ये सब नहीं चल सकतीं, वैसे ही हिंदुस्तानी लोगों को कोई चलानेवाला हो, तो ये क्या नहीं कर सकते।

नीचे दिए गए विकल्पों में से उपरोक्त गद्यांश का भाव पहचानें।

(1) भारत से घृणा
(2) राजाओं महाराजाओं की प्रशंसा
(3) **भारतीयों को जगाने की कोशिश ✔**
(4) भारतीयों की उपेक्षा

Q.152

नीचे दिए गए गद्यांश को पढ़कर निम्नलिखित पाँच प्रश्नों के उत्तर दिए गए विकल्पों में से चुनें।
आज बड़े ही आनंद का दिन है कि इस छोटे से नगर बलिया में हम इतने मनुष्यों को बड़े उत्साह से एक स्थान पर देखते हैं। इस अभागे आलसी देश में जो कुछ हो जाए वही बहुत कुछ है। बनारस ऐसे-ऐसे बड़े नगरों में जब कुछ नहीं होता तो यह हम क्यों न कहेंगे कि बलिया में जो कुछ हमने देखा, वह बहुत ही प्रशंसा के योग्य है। इस उत्साह का मूल कारण जो हमने खोजा, तो प्रगट हो गया कि इस देश के भाग्य से आजकल यहाँ सारा समाज ही ऐसा एकत्र है। जहाँ रॉबर्ट साहब बहादुर जैसे कलेक्टर हों, वहाँ क्यों न ऐसा समाज हो। जिस देश और काल में ईश्वर ने अकबर को उत्पन्न किया था, उसी में अबुल फजल, बीरबल, टोडरमल को भी उत्पन्न किया। यहाँ रॉबर्ट साहब अकबर हैं, तो मुंशी चतुर्भुज सहाय, मुंशी बिहारीलाल साहब आदि अबुल फजल और टोडरमल हैं। हमारे हिंदुस्तानी लोग तो रेल की गाड़ी हैं। यद्यपि फर्स्ट क्लास, सेकेंड क्लास आदि गाड़ी बहुत अच्छी-अच्छी और बड़े-बड़े महसूल की इस ट्रेन में लगी हैं पर बिना इंजिन ये सब नहीं चल सकतीं, वैसे ही हिंदुस्तानी लोगों को कोई चलानेवाला हो, तो ये क्या नहीं कर सकते।

नीचे दिए गए विकल्पों में से उपरोक्त गद्यांश का मुख्य विषय पहचानें ।

(1) चुनावी आकांक्षा
(2) राजनीतिक जुमला
(3) **भारत की उन्नति की चिंता ✔**
(4) झूठी प्रशंसा

Q.153

नीचे दिए गए गद्यांश को पढ़कर निम्नलिखित पाँच प्रश्नों के उत्तर दिए गए विकल्पों में से चुनें।
आज बड़े ही आनंद का दिन है कि इस छोटे से नगर बलिया में हम इतने मनुष्यों को बड़े उत्साह से एक स्थान पर देखते हैं। इस अभागे आलसी देश में जो कुछ हो जाए वही बहुत कुछ है। बनारस ऐसे-ऐसे बड़े नगरों में जब कुछ नहीं होता तो यह हम क्यों न कहेंगे कि बलिया में जो कुछ हमने देखा, वह बहुत ही प्रशंसा के योग्य है। इस उत्साह का मूल कारण जो हमने खोजा, तो प्रगट हो गया कि इस देश के भाग्य से आजकल यहाँ सारा समाज ही ऐसा एकत्र है। जहाँ रॉबर्ट साहब बहादुर जैसे कलेक्टर हों, वहाँ क्यों न ऐसा समाज हो। जिस देश और काल में ईश्वर ने अकबर को उत्पन्न किया था, उसी में अबुल फजल, बीरबल, टोडरमल को भी उत्पन्न किया। यहाँ रॉबर्ट साहब अकबर हैं, तो मुंशी चतुर्भुज सहाय, मुंशी बिहारीलाल साहब आदि अबुल फजल और टोडरमल हैं। हमारे हिंदुस्तानी लोग तो रेल की गाड़ी हैं। यद्यपि फर्स्ट क्लास, सेकेंड क्लास आदि गाड़ी बहुत अच्छी-अच्छी और बड़े-बड़े महसूल की इस ट्रेन में लगी हैं पर बिना इंजिन ये सब नहीं चल सकतीं, वैसे ही हिंदुस्तानी लोगों को कोई चलानेवाला हो, तो ये क्या नहीं कर सकते।

नीचे दिए गए विकल्पों में से उपरोक्त गद्यांश के तथ्य पहचानें।

(1) गद्यांश में तथ्य यह है कि अंग्रेजों के समय हिंदुस्तान एक विकसित राष्ट्र था तथा यहाँ कोई भेदभाव नहीं था।
(2) गद्यांश में तथ्य यह है कि हिंदुस्तानी लोगों को कोई चलानेवाला हो, तो ये क्या नहीं कर सकते। ✔
(3) गद्यांश में तथ्य यह है कि हिन्दुस्तानी आगे बढ़कर सबकुछ खुद ही कर लेते हैं।
(4) गद्यांश में तथ्य यह है कि हिन्दुस्तानी किसी कि नहीं सुनते।

Q.154

नीचे दिए गए गद्यांश को पढ़कर निम्नलिखित पाँच प्रश्नों के उत्तर दिए गए विकल्पों में से चुनें।
आज बड़े ही आनंद का दिन है कि इस छोटे से नगर बलिया में हम इतने मनुष्यों को बड़े उत्साह से एक स्थान पर देखते हैं। इस अभागे आलसी देश में जो कुछ हो जाए वही बहुत कुछ है। बनारस ऐसे-ऐसे बड़े नगरों में जब कुछ नहीं होता तो यह हम क्यों न कहेंगे कि बलिया में जो कुछ हमने देखा, वह बहुत ही प्रशंसा के योग्य है। इस उत्साह का मूल कारण जो हमने खोजा, तो प्रगट हो गया कि इस देश के भाग्य से आजकल यहाँ सारा समाज ही ऐसा एकत्र है। जहाँ रॉबर्ट साहब बहादुर जैसे कलेक्टर हों, वहाँ क्यों न ऐसा समाज हो। जिस देश और काल में ईश्वर ने अकबर को उत्पन्न किया था, उसी में अबुल फजल, बीरबल, टोडरमल को भी उत्पन्न किया। यहाँ रॉबर्ट साहब अकबर हैं, तो मुंशी चतुर्भुज सहाय, मुंशी बिहारीलाल साहब आदि अबुल फजल और टोडरमल हैं। हमारे हिंदुस्तानी लोग तो रेल की गाड़ी हैं। यद्यपि फर्स्ट क्लास, सेकेंड क्लास आदि गाड़ी बहुत अच्छी-अच्छी और बड़े-बड़े महसूल की इस ट्रेन में लगी हैं पर बिना इंजिन ये सब नहीं चल सकतीं, वैसे ही हिंदुस्तानी लोगों को कोई चलानेवाला हो, तो ये क्या नहीं कर सकते।

नीचे दिए गए विकल्पों में से आलसी का विलोम शब्द चुनें।

(1) जीवंत
(2) तेज
(3) बहुमुखी
(4) परिश्रमी ✔

Q.155

नीचे दिए गए गद्यांश को पढ़कर निम्नलिखित पाँच प्रश्नों के उत्तर दिए गए विकल्पों में से चुनें।
आज बड़े ही आनंद का दिन है कि इस छोटे से नगर बलिया में हम इतने मनुष्यों को बड़े उत्साह से एक स्थान पर देखते हैं। इस अभागे आलसी देश में जो कुछ हो जाए वही बहुत कुछ है। बनारस ऐसे-ऐसे बड़े नगरों में जब कुछ नहीं होता तो यह हम क्यों न कहेंगे कि बलिया में जो कुछ हमने देखा, वह बहुत ही प्रशंसा के योग्य है। इस उत्साह का मूल कारण जो हमने खोजा, तो प्रगट हो गया कि इस देश के भाग्य से आजकल यहाँ सारा समाज ही ऐसा एकत्र है। जहाँ रॉबर्ट साहब बहादुर जैसे कलेक्टर हों, वहाँ क्यों न ऐसा समाज हो। जिस देश और काल में ईश्वर ने अकबर को उत्पन्न किया था, उसी में अबुल फजल, बीरबल, टोडरमल को भी उत्पन्न किया। यहाँ रॉबर्ट साहब अकबर हैं, तो मुंशी चतुर्भुज सहाय, मुंशी बिहारीलाल साहब आदि अबुल फजल और टोडरमल हैं। हमारे हिंदुस्तानी लोग तो रेल की गाड़ी हैं। यद्यपि फर्स्ट क्लास, सेकेंड क्लास आदि गाड़ी बहुत अच्छी-अच्छी और बड़े-बड़े महसूल की इस ट्रेन में लगी हैं पर बिना इंजिन ये सब नहीं चल सकतीं, वैसे ही हिंदुस्तानी लोगों को कोई चलानेवाला हो, तो ये क्या नहीं कर सकते।

नीचे दिए गए विकल्पों में से एकत्र का शब्दार्थ चुनें।

(1) जरुरतमन्द
(2) विदेह
(3) विचित्र
(4) **इकट्ठा ✔**

Q.156

निम्नलिखित गद्यांश को पढ़ें और इसके बाद प्रश्नों के उत्तर दें।
वैदिक युग में यज्ञ अथवा कर्मकाण्ड के माध्यम से धर्मानुष्ठान हुआ करते थे। आगे लोग प्राय: प्राकृतिक वस्तुओं अथवा घटनाओं के मूल में किसी देवता की कल्पना कर लेते थे और उसे प्रसन्न रखने के लिए यज्ञादि का आयोजन करते थे। विनय अथवा प्रार्थना भी उनके दैनिक जीवन की उल्लासमयी अभिव्यक्ति थी। उनका ध्यान मुख्यत: ऐहिक सुखों की प्राप्ति पर केंद्रित था और वह अंत:करण की साधना की अपेक्षा बाह्य विधानों का अनुसरण करने की ओर अधिक प्रवृत्त रहते थे। फिर भी, शुभाशुभ परिणामों में उनका विश्वास था, जिस कारण उनके यज्ञादि कर्मकाण्ड श्रद्धा से अनुप्राणित रहते थे। श्रद्धाविहीन यज्ञ का कोई अर्थ न था। इसी से श्रद्धा- मूलक भक्ति का प्रादुर्भाव हुआ और आगे चलकर बहुदेववाद भी एकदेववाद में परिणत हो चला। भक्त के लिए यह स्वाभाविक हो गया कि यह बिखरी हुई शक्तियों में सामंजस्य लाकर अपनी दृष्टि किसी एक में निविष्ट करे। फलस्वरूप बहुदेवों की कल्पना सिमट कर धीरे-धीरे एक में ही समाहित होने लगी और कहा जाने लगा विद्वान लोग उसी (सत्) को इंद्र, मित्र, वरूण या अग्नि के नाम से पुकारते हैं। इस प्रकार सार्वभौमिक मौलिक एकता के प्रतिपादन द्वारा परमात्म-तत्त्व की प्रतिष्ठा हो गयी।

वैदिक काल में यज्ञादि का आयोजन करने का उद्देश्य होता था-

(1) जीवन को उल्लासमयी बनाने हेतु
(2) प्राकृतिक घटनाओं से संरक्षण हेतु
(3) **कल्पित देवताओं को प्रसन्न करने हेतु ✔**
(4) कर्मकाण्ड करने हेतु

Q.157

निम्नलिखित गद्यांश को पढ़ें और इसके बाद प्रश्नों के उत्तर दें।
वैदिक युग में यज्ञ अथवा कर्मकाण्ड के माध्यम से धर्मानुष्ठान हुआ करते थे। आगे लोग प्राय: प्राकृतिक वस्तुओं अथवा घटनाओं के मूल में किसी देवता की कल्पना कर लेते थे और उसे प्रसन्न रखने के लिए यज्ञादि का आयोजन करते थे। विनय अथवा प्रार्थना भी उनके दैनिक जीवन की उल्लासमयी अभिव्यक्ति थी। उनका ध्यान मुख्यत: ऐहिक सुखों की प्राप्ति पर केंद्रित था और वह अंत:करण की साधना की अपेक्षा बाह्य विधानों का अनुसरण करने की ओर अधिक प्रवृत्त रहते थे। फिर भी, शुभाशुभ परिणामों में उनका विश्वास था, जिस कारण उनके यज्ञादि कर्मकाण्ड श्रद्धा से अनुप्राणित रहते थे। श्रद्धाविहीन यज्ञ का कोई अर्थ न था। इसी से श्रद्धा- मूलक भक्ति का प्रादुर्भाव हुआ और आगे चलकर बहुदेववाद भी एकदेववाद में परिणत हो चला। भक्त के लिए यह स्वाभाविक हो गया कि यह बिखरी हुई शक्तियों में सामंजस्य लाकर अपनी दृष्टि किसी एक में निविष्ट करे। फलस्वरूप बहुदेवों की कल्पना सिमट कर धीरे-धीरे एक में ही समाहित होने लगी और कहा जाने लगा विद्वान लोग उसी (सत्) को इंद्र, मित्र, वरूण या अग्नि के नाम से पुकारते हैं। इस प्रकार सार्वभौमिक मौलिक एकता के प्रतिपादन द्वारा परमात्म-तत्त्व की प्रतिष्ठा हो गयी।

याज्ञिक कर्मकाण्डों के लिए आवश्यक था-

(1) प्रेम भाव
(2) दास्य भाव
(3) **श्रद्धा भाव ✔**
(4) दया भाव

Q.158

निम्नलिखित गद्यांश को पढ़ें और इसके बाद प्रश्नों के उत्तर दें।
वैदिक युग में यज्ञ अथवा कर्मकाण्ड के माध्यम से धर्मानुष्ठान हुआ करते थे। आगे लोग प्राय: प्राकृतिक वस्तुओं अथवा घटनाओं के मूल में किसी देवता की कल्पना कर लेते थे और उसे प्रसन्न रखने के लिए यज्ञादि का आयोजन करते थे। विनय अथवा प्रार्थना भी उनके दैनिक जीवन की उल्लासमयी अभिव्यक्ति थी। उनका ध्यान मुख्यत: ऐहिक सुखों की प्राप्ति पर केंद्रित था और वह अंत:करण की साधना की अपेक्षा बाह्य विधानों का अनुसरण करने की ओर अधिक प्रवृत्त रहते थे। फिर भी, शुभाशुभ परिणामों में उनका विश्वास था, जिस कारण उनके यज्ञादि कर्मकाण्ड श्रद्धा से अनुप्राणित रहते थे। श्रद्धाविहीन यज्ञ का कोई अर्थ न था। इसी से श्रद्धा- मूलक भक्ति का प्रादुर्भाव हुआ और आगे चलकर बहुदेववाद भी एकदेववाद में परिणत हो चला। भक्त के लिए यह स्वाभाविक हो गया कि यह बिखरी हुई शक्तियों में सामंजस्य लाकर अपनी दृष्टि किसी एक में निविष्ट करे। फलस्वरूप बहुदेवों की कल्पना सिमट कर धीरे-धीरे एक में ही समाहित होने लगी और कहा जाने लगा विद्वान लोग उसी (सत्) को इंद्र, मित्र, वरूण या अग्नि के नाम से पुकारते हैं। इस प्रकार सार्वभौमिक मौलिक एकता के प्रतिपादन द्वारा परमात्म-तत्त्व की प्रतिष्ठा हो गयी।

सामंजस्य का विलोम शब्द निम्न में से है---

(1) **असामंजस्य ✔**
(2) बिखराव
(3) अवसामंजस्य
(4) आसामंजस्य

Q.159

निम्नलिखित गद्यांश को पढ़ें और इसके बाद प्रश्नों के उत्तर दें।
वैदिक युग में यज्ञ अथवा कर्मकाण्ड के माध्यम से धर्मानुष्ठान हुआ करते थे। आगे लोग प्राय: प्राकृतिक वस्तुओं अथवा घटनाओं के मूल में किसी देवता की कल्पना कर लेते थे और उसे प्रसन्न रखने के लिए यज्ञादि का आयोजन करते थे। विनय अथवा प्रार्थना भी उनके दैनिक जीवन की उल्लासमयी अभिव्यक्ति थी। उनका ध्यान मुख्यत: ऐहिक सुखों की प्राप्ति पर केंद्रित था और वह अंत:करण की साधना की अपेक्षा बाह्य विधानों का अनुसरण करने की ओर अधिक प्रवृत्त रहते थे। फिर भी, शुभाशुभ परिणामों में उनका विश्वास था, जिस कारण उनके यज्ञादि कर्मकाण्ड श्रद्धा से अनुप्राणित रहते थे। श्रद्धाविहीन यज्ञ का कोई अर्थ न था। इसी से श्रद्धा- मूलक भक्ति का प्रादुर्भाव हुआ और आगे चलकर बहुदेववाद भी एकदेववाद में परिणत हो चला। भक्त के लिए यह स्वाभाविक हो गया कि यह बिखरी हुई शक्तियों में सामंजस्य लाकर अपनी दृष्टि किसी एक में निविष्ट करे। फलस्वरूप बहुदेवों की कल्पना सिमट कर धीरे-धीरे एक में ही समाहित होने लगी और कहा जाने लगा विद्वान लोग उसी (सत्) को इंद्र, मित्र, वरूण या अग्नि के नाम से पुकारते हैं। इस प्रकार सार्वभौमिक मौलिक एकता के प्रतिपादन द्वारा परमात्म-तत्त्व की प्रतिष्ठा हो गयी।

वैदिक युगीन लोगों की प्रार्थना आदि का लक्ष्य था-

(1) ऐहिक सुखों की प्राप्ति ✔
(2) ईश्वर से निकट हो पाने के सुख की प्राप्ति
(3) दैहिक सुखों की प्राप्ति
(4) पारलौकिक सुखों की प्राप्ति

Q.160

निम्नलिखित गद्यांश को पढ़ें और इसके बाद प्रश्नों के उत्तर दें।
वैदिक युग में यज्ञ अथवा कर्मकाण्ड के माध्यम से धर्मानुष्ठान हुआ करते थे। आगे लोग प्राय: प्राकृतिक वस्तुओं अथवा घटनाओं के मूल में किसी देवता की कल्पना कर लेते थे और उसे प्रसन्न रखने के लिए यज्ञादि का आयोजन करते थे। विनय अथवा प्रार्थना भी उनके दैनिक जीवन की उल्लासमयी अभिव्यक्ति थी। उनका ध्यान मुख्यत: ऐहिक सुखों की प्राप्ति पर केंद्रित था और वह अंत:करण की साधना की अपेक्षा बाह्य विधानों का अनुसरण करने की ओर अधिक प्रवृत्त रहते थे। फिर भी, शुभाशुभ परिणामों में उनका विश्वास था, जिस कारण उनके यज्ञादि कर्मकाण्ड श्रद्धा से अनुप्राणित रहते थे। श्रद्धाविहीन यज्ञ का कोई अर्थ न था। इसी से श्रद्धा- मूलक भक्ति का प्रादुर्भाव हुआ और आगे चलकर बहुदेववाद भी एकदेववाद में परिणत हो चला। भक्त के लिए यह स्वाभाविक हो गया कि यह बिखरी हुई शक्तियों में सामंजस्य लाकर अपनी दृष्टि किसी एक में निविष्ट करे। फलस्वरूप बहुदेवों की कल्पना सिमट कर धीरे-धीरे एक में ही समाहित होने लगी और कहा जाने लगा विद्वान लोग उसी (सत्) को इंद्र, मित्र, वरूण या अग्नि के नाम से पुकारते हैं। इस प्रकार सार्वभौमिक मौलिक एकता के प्रतिपादन द्वारा परमात्म-तत्त्व की प्रतिष्ठा हो गयी।

वैदिक युगीन धर्म के संदर्भ में असत्य है-

(1) उन्हें यज्ञों के शुभाशुभ परिणामों में विश्वास नहीं था। ✔
(2) इंद्र, मित्र,वरूण एवं अग्नि मुख्य देवता थे।
(3) धर्मानुष्ठान यज्ञ के माध्यम से हुआ करते थे।
(4) प्रार्थना उनके दैनिक जीवन की उल्लासमयी अभिव्यक्ति थी।

English Language and Comprehension

Q.161 Choose the correct form of indirect speech for the following sentence from the options.
"I will join the team meeting tomorrow and share my progress updates," he said.

(1) He said that he must join the team meeting tomorrow and share his progress updates.
(2) He said that he would join the team meeting tomorrow and share his progress updates. ✔
(3) He said that he can join the team meeting tomorrow and share his progress updates.
(4) He said that he could join the team meeting tomorrow and share his progress updates.

Q.162 Complete the following sentence by choosing the correct option.
He chose ___ best seat in ___ hall, and nobody questioned his choice today.

(1) a, a
(2) **the, the ✔**
(3) a, the
(4) the, a

Q.163 Read the given sentence carefully and convert it into passive voice.
The senior maintenance technician had meticulously repaired the severely malfunctioning air-conditioning unit before the weary residents returned to the high- rise apartment after their prolonged outing.

(1) The severely malfunctioning air-conditioning unit was meticulously repaired by the senior maintenance technician before the weary residents returned to the high-rise apartment after their prolonged outing.
(2) **The severely malfunctioning air-conditioning unit had been meticulously repaired by the senior maintenance technician before the weary residents returned to the high-rise apartment after their prolonged outing. ✔**
(3) The severely malfunctioning air-conditioning unit is meticulously repaired by the senior maintenance technician before the weary residents returned to the high-rise apartment after their prolonged outing.
(4) The severely malfunctioning air-conditioning unit has been meticulously repaired by the senior maintenance technician before the weary residents returned to the high-rise apartment after their prolonged outing.

Q.164 Select the option that expresses the given sentence in the correct past tense form.
She completes her daily workout and feels proud of her consistent dedication and progress.

(1) **She completed her daily workout and felt proud of her consistent dedication and progress. ✔**
(2) She can complete her daily workout and feels proud of her consistent dedication and progress.
(3) She has completed her daily workout and felt proud of her consistent dedication and progress.
(4) She will complete her daily workout and feels proud of her consistent dedication and progress.

Q.165 Choose the most suitable one-word substitute for the underlined words in the sentence.
The people performing with their confident style and charming smiles made the event truly captivating.

(1) articulate performers
(2) **debonair performers ✔**
(3) austere performers
(4) boorish performers

Q.166 A sentence, divided into segments is given. The first and last segments (1 and 6) are fixed and have been highlighted. The segments A, B, C and D are jumbled up. Select the option which represents the most logical and meaningful order.

1. It is obvious that
(A) a complex interplay of
(B) factors, both mental and physical,
(C) rather than any single element must
(D) and not just physical health,
6. determine our overall well-being.

(1) B A C D
(2) D C A B
(3) A B D C ✔
(4) A C D B

Q.167 Complete the following sentence with the most appropriate option.
The artist described the inspiration behind the painting ....., captivating everyone with the depth of emotion.

(1) passionately ✔
(2) mechanically
(3) formally
(4) indifferently

Q.168 The parts of a sentence are given below. While the first part (S) is fixed and correctly placed, the remaining segments are jumbled. Rearrange them to form a clear, meaningful, and grammatically correct sentence.

S. Interdisciplinary research expands
A. enriching understanding and fostering innovation rooted in
B. values from multiple disciplines, thereby
C. holistic rather than reductionist thinking
D. intellectual horizons by integrating methods, perspectives, and

(1) CADB
(2) DBAC ✔
(3) BACD
(4) ACDB

Q.169 In formal academic or public settings, when an individual delivers the very first ceremonial address of their life, marking their debut as a speaker before an audience, which expression most accurately denotes this inaugural oration?

(1) Preamble address
(2) Preliminary discourse
(3) Introductory allocution
(4) Maiden speech ✔

Q.170 In the given question, a statement divided into different segments is given.
Rearrange all the segments to form a coherent statement.
the picturesque countryside(P)/ reflecting the azure sky above (Q)/ the meandering river (R)/ flowed lazily through (S)/

(1) QRSP
(2) RPSQ
(3) PQRS
(4) **RSPQ ✔**

Q.171 Select the correct one-word substitution for a person who speaks excessively, often dominating conversations with unnecessary detail and prolonged commentary, regardless of whether others are interested or not.

(1) **Loquacious ✔**
(2) Circumspect
(3) Taciturn
(4) Reticent

Q.172 Out of the four alternatives, choose the one that can be used as a substitute for the bracketed word segment.
The university launched a new course in (the scientific study of fossils and ancient life-forms) which attracted students keen on exploring Earth's pre-historic past.

(1) **palaeontology ✔**
(2) mineralogy
(3) archaeology
(4) entomology

Q.173 Choose the correct form of passive voice for the following sentence from the options.
The attorneys carefully scrutinized the intricate legal contract before final approval yesterday.

(1) The intricate legal contract has been carefully scrutinized by the attorneys before final approval yesterday.
(2) The intricate legal contract had carefully scrutinized by the attorneys before final approval yesterday.
(3) The intricate legal contract had been carefully scrutinized by the attorneys before final approval yesterday.
(4) **The intricate legal contract was carefully scrutinized by the attorneys before final approval yesterday. ✔**

Q.174 Identify the correct form of direct speech of the following sentence.
My friend said that he had been asked to complete the task by the next day.

(1) My friend said, "He had been asked to complete the task by tomorrow."
(2) My friend said, "I have been asking to complete the task tomorrow."
(3) **My friend said, "I was asked to complete the task by tomorrow." ✔**
(4) My friend says, "I have been asked to complete the task by tomorrow."

Q.175 Choose the correct form of the future tense to complete the sentence.
By 2035, many coastal cities in India _____ significant infrastructural changes to adapt to rising sea levels and extreme weather conditions caused by climate change.

(1) will be implementing
(2) **will have implemented ✔**
(3) will implement
(4) have implemented

Q.176 Complete the following sentence by choosing the correct option.
The professor spoke_____, ensuring each student grasped the underlying principles clearly today.

(1) reticently
(2) technically
(3) **didactically ✔**
(4) astoundingly

Q.177 Complete the given sentence by choosing the correct option.
The manager promised that he would ..... the issue before the next meeting.

(1) resolves
(2) **resolve ✔**
(3) resolving
(4) resolved

Q.178 Fill in the blanks by choosing the option that best completes the sentence.
Although all major financial decisions are ordinarily taken by the chairman, in this exceptional circumstance, it is ___ president who has been granted the authority to issue ___ final directive after reviewing the committee's comprehensive recommendations.

(1) the , a
(2) a , the
(3) a , a
(4) **the , the ✔**

Q.179 Complete the following sentence by choosing the correct option.
She _____ explained the complex proposal, ensuring every detail was clearly understood.

(1) chronologically
(2) **meticulously ✔**
(3) briefly
(4) caustically

QuickSarkari.com | WhatsApp Channel | Telegram: t.me/quick_sarkari

Q.180 The question below consists of a set of labeled phrases. Out of the four options given, select the most logical order to form a coherent sentence.
P: and threaten biodiversity on a global scale
Q: the conservation of endangered species is not just a moral obligation
R: of even a single species can disrupt entire ecosystems
S: but an ecological necessity, since the extinction

(1) PRQS
(2) QSRP ✔
(3) SRQP
(4) RPSQ

Q.181 Identify the correct antonym of the underlined word.
The young girl became peevish over every little thing she wanted but did not get.

(1) petulant
(2) fretful
(3) ambitious
(4) serene ✔

Q.182 Choose the correct antonym for the underlined word from the options.
Her speech disorder was an impediment to clear communication during professional presentations.

(1) Hyperbole
(2) Hindrance
(3) Imprudence
(4) Incentive ✔

Q.183 Substitute the correct idiom for the underlined word segment by choosing from the following options.
The competing company ran their new advertisement a day early, hoping to take the attention.

(1) to have an axe to grind
(2) to put a sock in it
(3) to steal our thunder ✔
(4) to hold a candle to us

Q.184 Substitute the correct proverb for the underlined word segment by choosing from the following options.
Don't get discouraged by your early failures in coding; just remember that regular repetition of an activity is the way to become skilled at it.

(1) a stitch in time saves nine
(2) practice makes perfect ✔
(3) every cloud has a silver lining
(4) don't put all your eggs in one basket

Q.185 Identify the incorrect spelling and choose the right option to rectify the sentence.
The craze for the movie turned tumultous when we saw the chaotic crowd, with shoving, fervent fans and frantic security struggling to control the scene.

(1) fervant
(2) choatic
(3) frentic
(4) tumultuous ✔

Q.186 Substitute the correct idiom for the underlined word segment by choosing from the following options.
It took the new hire a few weeks, but now he finally understands the details of the accounting software.

(1) knows the ropes ✔
(2) pays through the nose
(3) kicks the bucket
(4) buys a lemon

Q.187 Identify the correct antonym of the underlined word.
Certain groups formed a coalition in the city to tackle the rising thefts in various areas.

(1) hegemony
(2) dissension ✔
(3) prudence
(4) obsession

Q.188 Substitute the correct idiom for the underlined word segment by choosing from the following options.
I tried to keep the engagement a secret until Christmas, but my excited fiancé accidentally revealed the secret during a phone call.

(1) missed the boat
(2) went the extra mile
(3) spoke of the devil
(4) let the cat out of the bag ✔

Q.189 Identify the spelling error in the given sentence and select the option that rectifies it.
The astute researcher scrutinized the enigmetic data set and formulated a compelling hypothesis supported by evidence.

(1) hypothisis
(2) scrutenized
(3) astut
(4) enigmatic ✔

Q.190 Choose the correct antonym for the underlined word from the options.
The editor removed all extraneous details from the report to improve clarity and focus.

(1) Hackneyed
(2) Glib
(3) Intrinsic ✔
(4) Garrulous

Q.191

Read the passage carefully and answer the questions that are given below.
The Environment Protection Act, 1986, is one of India's most comprehensive and pivotal pieces of environmental legislation. Enacted in the aftermath of the Bhopal Gas Tragedy, it seeks to safeguard and improve the quality of the environment while preventing and controlling pollution. The Act empowers the Central Government to take all necessary measures for environmental protection, including setting standards for emissions and discharges, regulating industrial operations, and restricting activities in ecologically sensitive regions.
The enactment of this law was influenced by India's commitment at the 1972 Stockholm Conference on the Human Environment and was passed under Article 253 of the Constitution, which allows Parliament to implement international agreements. Articles 48A and 51A further underline the duty of both the state and citizens to protect and improve the environment.
Under the Act, the Central Government can establish environmental laboratories, appoint government analysts, and issue directions to close or regulate industries violating prescribed standards. Non-compliance may result in imprisonment of up to five years or a fine of up to one lakh rupees. However, critics note that the act remains highly centralised and lacks sufficient public participation.
Despite these drawbacks, the Act remains a pivotal step toward environmental governance in India, forming the basis for later institutions like the National Green Tribunal that ensure environmental justice

Select an appropriate title for this passage from the given options.

(1) The Pivotal Role of the Environment Protection Act, 1986 ✔

(2) The Inept Role of the Environment Protection Act, 1986

(3) The Flawed Role of the Environment Protection Act, 1968

(4) The Deficient Role of the Environment Protection Act, 1968

QuickSarkari.com | WhatsApp Channel | Telegram: t.me/quick_sarkari

Q.192

Read the passage carefully and answer the questions that are given below.
The Environment Protection Act, 1986, is one of India's most comprehensive and pivotal pieces of environmental legislation. Enacted in the aftermath of the Bhopal Gas Tragedy, it seeks to safeguard and improve the quality of the environment while preventing and controlling pollution. The Act empowers the Central Government to take all necessary measures for environmental protection, including setting standards for emissions and discharges, regulating industrial operations, and restricting activities in ecologically sensitive regions.
The enactment of this law was influenced by India's commitment at the 1972 Stockholm Conference on the Human Environment and was passed under Article 253 of the Constitution, which allows Parliament to implement international agreements. Articles 48A and 51A further underline the duty of both the state and citizens to protect and improve the environment.
Under the Act, the Central Government can establish environmental laboratories, appoint government analysts, and issue directions to close or regulate industries violating prescribed standards. Non-compliance may result in imprisonment of up to five years or a fine of up to one lakh rupees. However, critics note that the act remains highly centralised and lacks sufficient public participation.
Despite these drawbacks, the Act remains a pivotal step toward environmental governance in India, forming the basis for later institutions like the National Green Tribunal that ensure environmental justice

What is the main idea of the passage?

(1) The passage focuses upon the futile role of the Environment Protection Act, 1986, in encouraging unregulated urbanisation.

(2) The passage focuses upon the undermined role of the Environment Protection Act, 1986, in promoting resource exploitation.

(3) The passage focuses upon the deficient role of the Environment Protection Act, 1968, in advancing infrastructure projects.

(4) The passage focuses upon the pivotal role of the Environment Protection Act, 1986, in safeguarding India's environment. ✔

QuickSarkari.com | WhatsApp Channel | Telegram: t.me/quick_sarkari

Q.193

Read the passage carefully and answer the questions that are given below.
The Environment Protection Act, 1986, is one of India's most comprehensive and pivotal pieces of environmental legislation. Enacted in the aftermath of the Bhopal Gas Tragedy, it seeks to safeguard and improve the quality of the environment while preventing and controlling pollution. The Act empowers the Central Government to take all necessary measures for environmental protection, including setting standards for emissions and discharges, regulating industrial operations, and restricting activities in ecologically sensitive regions.
The enactment of this law was influenced by India's commitment at the 1972 Stockholm Conference on the Human Environment and was passed under Article 253 of the Constitution, which allows Parliament to implement international agreements. Articles 48A and 51A further underline the duty of both the state and citizens to protect and improve the environment.
Under the Act, the Central Government can establish environmental laboratories, appoint government analysts, and issue directions to close or regulate industries violating prescribed standards. Non-compliance may result in imprisonment of up to five years or a fine of up to one lakh rupees. However, critics note that the act remains highly centralised and lacks sufficient public participation.
Despite these drawbacks, the Act remains a pivotal step toward environmental governance in India, forming the basis for later institutions like the National Green Tribunal that ensure environmental justice

Identify the structure of the passage.

(1) Chronological
(2) Descriptive
(3) **Expository** ✔
(4) Narrative

QuickSarkari.com | WhatsApp Channel | Telegram: t.me/quick_sarkari

Q.194

Read the passage carefully and answer the questions that are given below.
The Environment Protection Act, 1986, is one of India's most comprehensive and pivotal pieces of environmental legislation. Enacted in the aftermath of the Bhopal Gas Tragedy, it seeks to safeguard and improve the quality of the environment while preventing and controlling pollution. The Act empowers the Central Government to take all necessary measures for environmental protection, including setting standards for emissions and discharges, regulating industrial operations, and restricting activities in ecologically sensitive regions.
The enactment of this law was influenced by India's commitment at the 1972 Stockholm Conference on the Human Environment and was passed under Article 253 of the Constitution, which allows Parliament to implement international agreements. Articles 48A and 51A further underline the duty of both the state and citizens to protect and improve the environment.
Under the Act, the Central Government can establish environmental laboratories, appoint government analysts, and issue directions to close or regulate industries violating prescribed standards. Non-compliance may result in imprisonment of up to five years or a fine of up to one lakh rupees. However, critics note that the act remains highly centralised and lacks sufficient public participation.
Despite these drawbacks, the Act remains a pivotal step toward environmental governance in India, forming the basis for later institutions like the National Green Tribunal that ensure environmental justice

Identify the tone of the passage.

(1) Critical and pessimistic
(2) **Informative and analytical ✔**
(3) Persuasive and motivational
(4) Informative and accusatory

QuickSarkari.com | WhatsApp Channel | Telegram: t.me/quick_sarkari

Q.195

Read the passage carefully and answer the questions that are given below.
The Environment Protection Act, 1986, is one of India's most comprehensive and pivotal pieces of environmental legislation. Enacted in the aftermath of the Bhopal Gas Tragedy, it seeks to safeguard and improve the quality of the environment while preventing and controlling pollution. The Act empowers the Central Government to take all necessary measures for environmental protection, including setting standards for emissions and discharges, regulating industrial operations, and restricting activities in ecologically sensitive regions.
The enactment of this law was influenced by India's commitment at the 1972 Stockholm Conference on the Human Environment and was passed under Article 253 of the Constitution, which allows Parliament to implement international agreements. Articles 48A and 51A further underline the duty of both the state and citizens to protect and improve the environment.
Under the Act, the Central Government can establish environmental laboratories, appoint government analysts, and issue directions to close or regulate industries violating prescribed standards. Non-compliance may result in imprisonment of up to five years or a fine of up to one lakh rupees. However, critics note that the act remains highly centralised and lacks sufficient public participation.
Despite these drawbacks, the Act remains a pivotal step toward environmental governance in India, forming the basis for later institutions like the National Green Tribunal that ensure environmental justice

Select the correct antonym of the given word from the passage.
Trivial

(1) Pivotal ✔
(2) Comprehensive
(3) Necessary
(4) Sensitive

QuickSarkari.com | WhatsApp Channel | Telegram: t.me/quick_sarkari

Q.196

Read the passage below and answer the questions that follow.
The field of soft robotics has seen a dramatic leap forward with the development of bio-inspired machines, particularly those mimicking the locomotion of invertebrates. Traditional robotics often relies on rigid components and complex electronic feedback loops, limiting their adaptability in unpredictable environments. However, soft robots, constructed primarily from flexible materials like silicone and hydrogels, are inherently more resilient and capable of navigating complex terrains, such as those found in deep-sea exploration or disaster relief scenarios. One significant innovation is the robotic jellyfish. These devices leverage the fluid dynamics of their natural counterparts— using pneumatic or hydraulic actuation systems to pulse their bell-shaped bodies—which makes them exceptionally energy-efficient for underwater propulsion. Furthermore, their compliant structure minimizes the risk of damage when interacting with delicate marine ecosystems. The inherent complexity of manufacturing and controlling these materials, however, presents a formidable challenge. The mathematical modelling of soft bodies under external forces is significantly more difficult than for rigid bodies, necessitating advanced computational frameworks. Yet, the benefits often outweigh the hurdles. For instance, future iterations are envisioned to integrate self-healing polymers, allowing the robots to automatically repair minor punctures, thereby extending their operational lifespan dramatically. This shift toward machines that mimic nature's evolutionary success, promoting both agility and robustness, represents a paradigm shift

Identify the suitable title for the passage.

(1) The Challenge of Modelling Hydrogel Components

(2) Soft Robotics: The Bio-Inspired Shift in Machine Design ✔

(3) Pneumatic Actuation Systems in Underwater Vehicles

(4) The Future of Disaster Relief Technology

QuickSarkari.com | WhatsApp Channel | Telegram: t.me/quick_sarkari

Q.197

Read the passage below and answer the questions that follow.
The field of soft robotics has seen a dramatic leap forward with the development of bio-inspired machines, particularly those mimicking the locomotion of invertebrates. Traditional robotics often relies on rigid components and complex electronic feedback loops, limiting their adaptability in unpredictable environments. However, soft robots, constructed primarily from flexible materials like silicone and hydrogels, are inherently more resilient and capable of navigating complex terrains, such as those found in deep-sea exploration or disaster relief scenarios. One significant innovation is the robotic jellyfish. These devices leverage the fluid dynamics of their natural counterparts— using pneumatic or hydraulic actuation systems to pulse their bell-shaped bodies—which makes them exceptionally energy-efficient for underwater propulsion. Furthermore, their compliant structure minimizes the risk of damage when interacting with delicate marine ecosystems. The inherent complexity of manufacturing and controlling these materials, however, presents a formidable challenge. The mathematical modelling of soft bodies under external forces is significantly more difficult than for rigid bodies, necessitating advanced computational frameworks. Yet, the benefits often outweigh the hurdles. For instance, future iterations are envisioned to integrate self-healing polymers, allowing the robots to automatically repair minor punctures, thereby extending their operational lifespan dramatically. This shift toward machines that mimic nature's evolutionary success, promoting both agility and robustness, represents a paradigm shift

Identify the central theme of the passage.

(1) The mathematical difficulties inherent in modelling non-rigid bodies.

(2) The integration of self-healing polymers into manufacturing processes.

(3) The historical evolution of deep-sea exploration technologies.

(4) The emergence and strategic advantages of bio-inspired soft robots over traditional rigid machines. ✔

QuickSarkari.com | WhatsApp Channel | Telegram: t.me/quick_sarkari

Q.198

Read the passage below and answer the questions that follow.
The field of soft robotics has seen a dramatic leap forward with the development of bio-inspired machines, particularly those mimicking the locomotion of invertebrates. Traditional robotics often relies on rigid components and complex electronic feedback loops, limiting their adaptability in unpredictable environments. However, soft robots, constructed primarily from flexible materials like silicone and hydrogels, are inherently more resilient and capable of navigating complex terrains, such as those found in deep-sea exploration or disaster relief scenarios. One significant innovation is the robotic jellyfish. These devices leverage the fluid dynamics of their natural counterparts— using pneumatic or hydraulic actuation systems to pulse their bell-shaped bodies—which makes them exceptionally energy-efficient for underwater propulsion. Furthermore, their compliant structure minimizes the risk of damage when interacting with delicate marine ecosystems. The inherent complexity of manufacturing and controlling these materials, however, presents a formidable challenge. The mathematical modelling of soft bodies under external forces is significantly more difficult than for rigid bodies, necessitating advanced computational frameworks. Yet, the benefits often outweigh the hurdles. For instance, future iterations are envisioned to integrate self-healing polymers, allowing the robots to automatically repair minor punctures, thereby extending their operational lifespan dramatically. This shift toward machines that mimic nature's evolutionary success, promoting both agility and robustness, represents a paradigm shift

Identify the fact given in the passage.

(1) Soft robots are constructed from flexible materials like silicone and hydrogels. ✔

(2) Traditional robotics is incapable of navigating any complex terrain.

(3) Future soft robots will exclusively use self-healing polymers.

(4) The robotic jellyfish is currently the most energy-efficient underwater vehicle.

Quick Sarkari

Q.199

Read the passage below and answer the questions that follow.
The field of soft robotics has seen a dramatic leap forward with the development of bio-inspired machines, particularly those mimicking the locomotion of invertebrates. Traditional robotics often relies on rigid components and complex electronic feedback loops, limiting their adaptability in unpredictable environments. However, soft robots, constructed primarily from flexible materials like silicone and hydrogels, are inherently more resilient and capable of navigating complex terrains, such as those found in deep-sea exploration or disaster relief scenarios. One significant innovation is the robotic jellyfish. These devices leverage the fluid dynamics of their natural counterparts— using pneumatic or hydraulic actuation systems to pulse their bell-shaped bodies—which makes them exceptionally energy-efficient for underwater propulsion. Furthermore, their compliant structure minimizes the risk of damage when interacting with delicate marine ecosystems. The inherent complexity of manufacturing and controlling these materials, however, presents a formidable challenge. The mathematical modelling of soft bodies under external forces is significantly more difficult than for rigid bodies, necessitating advanced computational frameworks. Yet, the benefits often outweigh the hurdles. For instance, future iterations are envisioned to integrate self-healing polymers, allowing the robots to automatically repair minor punctures, thereby extending their operational lifespan dramatically. This shift toward machines that mimic nature's evolutionary success, promoting both agility and robustness, represents a paradigm shift

Select the correct summary for the passage.

(1) While soft robots like the robotic jellyfish are useful for deep-sea exploration, their high manufacturing cost limits their widespread adoption in disaster relief missions.

(2) Soft robotics, using flexible materials and bio-inspired designs (like the jellyfish), overcomes the limitations of rigid robots in complex environments, despite facing significant computational and manufacturing challenges. ✔

(3) The primary challenge in soft robotics is the necessity of integrating self-healing polymers, which are key to extending the operational lifespan of these compliant machines.

(4) Invertebrate locomotion provides the perfect model for all future robotics, rendering traditional rigid robotics entirely obsolete in all engineering applications.

QuickSarkari.com | WhatsApp Channel | Telegram: t.me/quick_sarkari

Q.200

Read the passage below and answer the questions that follow.
The field of soft robotics has seen a dramatic leap forward with the development of bio-inspired machines, particularly those mimicking the locomotion of invertebrates. Traditional robotics often relies on rigid components and complex electronic feedback loops, limiting their adaptability in unpredictable environments. However, soft robots, constructed primarily from flexible materials like silicone and hydrogels, are inherently more resilient and capable of navigating complex terrains, such as those found in deep-sea exploration or disaster relief scenarios. One significant innovation is the robotic jellyfish. These devices leverage the fluid dynamics of their natural counterparts— using pneumatic or hydraulic actuation systems to pulse their bell-shaped bodies—which makes them exceptionally energy-efficient for underwater propulsion. Furthermore, their compliant structure minimizes the risk of damage when interacting with delicate marine ecosystems. The inherent complexity of manufacturing and controlling these materials, however, presents a formidable challenge. The mathematical modelling of soft bodies under external forces is significantly more difficult than for rigid bodies, necessitating advanced computational frameworks. Yet, the benefits often outweigh the hurdles. For instance, future iterations are envisioned to integrate self-healing polymers, allowing the robots to automatically repair minor punctures, thereby extending their operational lifespan dramatically. This shift toward machines that mimic nature's evolutionary success, promoting both agility and robustness, represents a paradigm shift

What is the antonym of the word 'formidable' as used in the passage?

(1) Powerful
(2) **Trivial ✔**
(3) Difficult
(4) Challenging "

Answer Key / उत्तर कुंजी

1 3	**2** 2	**3** 2	**4** 2	**5** 2	**6** 2	**7** 2	**8** 2	**9** 3	**10** 3	**11** 1	**12** 1	**13** 3	**14** 2	**15** 2
16 4	**17** 3	**18** 2	**19** 4	**20** 2	**21** 4	**22** 3	**23** 2	**24** 4	**25** 1	**26** 1	**27** 2	**28** 4	**29** 1	**30** 2
31 3	**32** 2	**33** 3	**34** 4	**35** 3	**36** 3	**37** 2	**38** 2	**39** 4	**40** 3	**41** 3	**42** 4	**43** 1	**44** 2	**45** 3
46 1	**47** 2	**48** 1	**49** 1	**50** 3	**51** 3	**52** 1	**53** 4	**54** 3	**55** 1	**56** 4	**57** 3	**58** 3	**59** 3	**60** 4
61 4	**62** 3	**63** 1	**64** 1	**65** 3	**66** 4	**67** 2	**68** 2	**69** 2	**70** 4	**71** 3	**72** 3	**73** 3	**74** 3	**75** 3
76 1	**77** 3	**78** 4	**79** 4	**80** 3	**81** 4	**82** 2	**83** 4	**84** 1	**85** 3	**86** 4	**87** 4	**88** 1	**89** 1	**90** 4
91 2	**92** 1	**93** 4	**94** 3	**95** 2	**96** 1	**97** 2	**98** 4	**99** 3	**100** 3	**101** 1	**102** 1	**103** 4	**104** 4	**105** 3
106 3	**107** 3	**108** 3	**109** 3	**110** 4	**111** 1	**112** 1	**113** 3	**114** 4	**115** 3	**116** 3	**117** 2	**118** 4	**119** 3	**120** 4
121 1	**122** 3	**123** 3	**124** 3	**125** 3	**126** 4	**127** 4	**128** 1	**129** 4	**130** 1	**131** 3	**132** 4	**133** 4	**134** 3	**135** 4
136 1	**137** 2	**138** 4	**139** 4	**140** 2	**141** 4	**142** 2	**143** 1	**144** 2	**145** 4	**146** 4	**147** 4	**148** 4	**149** 2	**150** 2

151 3	**152** 3	**153** 2	**154** 4	**155** 4	**156** 3	**157** 3	**158** 1	**159** 1	**160** 1	**161** 2	**162** 2	**163** 2	**164** 1	**165** 2
166 3	**167** 1	**168** 2	**169** 4	**170** 4	**171** 1	**172** 1	**173** 4	**174** 3	**175** 2	**176** 3	**177** 2	**178** 4	**179** 2	**180** 2
181 4	**182** 4	**183** 3	**184** 2	**185** 4	**186** 1	**187** 2	**188** 4	**189** 4	**190** 3	**191** 1	**192** 4	**193** 3	**194** 2	**195** 1
196 2	**197** 4	**198** 1	**199** 2	**200** 2										

Quick Sarkari

GOVT. OF NCT OF DELHI
Delhi Subordinate Services Selection Board
FC-18, Institutional Area, Karkardooma, Delhi – 110092.
www.dsssb.delhigovt.nic.in

Participant ID	[redacted]
Participant Name	[redacted]
Test Center Name	Aadarsh Pariksha Kendra CENTER C - Gate No 2 - Noida Sector 64
Test Date	28/02/2026
Test Time	5:00 PM - 7:00 PM
Subject	Naib Tehsildar

Section : **General Awareness**

Q.1 **In which of the following ways do Microfinance Institutions (MFIs) primarily contribute to financial inclusion in rural India?**

Ans
✗ 1. Focusing exclusively on urban populations to bridge the urban-rural financial divide

✗ 2. Offering technology-driven financial solutions that are accessible only to tech-savvy consumers

✓ 3. Providing accessible, small-scale financial services such as credit, savings, and insurance to underserved populations

✗ 4. By offering high-value corporate loans to stimulate large-scale industrial projects

Question ID : **441009628367**
Option 1 ID : **4410092467622**
Option 2 ID : **4410092467623**
Option 3 ID : **4410092467621**
Option 4 ID : **4410092467620**

Q.2 **In which of the following ways does NABARD's refinance scheme for rural financial institutions affect agricultural development?**

Ans
✗ 1. By directly purchasing agricultural produce from farmers

✓ 2. By offering long-term loans at subsidised rates to rural banks for agricultural lending

✗ 3. By providing short-term loans to consumers

✗ 4. By investing in technology startups in rural areas

Question ID : **441009628229**
Option 1 ID : **4410092467068**
Option 2 ID : **4410092467070**
Option 3 ID : **4410092467069**
Option 4 ID : **4410092467071**

QuickSarkari.com | WhatsApp Channel | Telegram: t.me/quick_sarkari

Q.3 Which acclaimed actor was announced as the recipient of the Dadasaheb Phalke Award for 2023 in September 2025?

Ans
✗ 1. Kamal Haasan
✓ 2. Mohanlal
✗ 3. Amitabh Bachchan
✗ 4. Mammootty

Question ID : **4410091492635**
Option 1 ID : **4410095896242**
Option 2 ID : **4410095896243**
Option 3 ID : **4410095896244**
Option 4 ID : **4410095896241**

Q.4 Who founded the Slave Dynasty in India?

Ans
✗ 1. Balban
✓ 2. Qutbuddin Aibak
✗ 3. Iltutmish
✗ 4. Razia Sultan

Question ID : **4410091489337**
Option 1 ID : **4410095883425**
Option 2 ID : **4410095883426**
Option 3 ID : **4410095883424**
Option 4 ID : **4410095883427**

Q.5 Which of the following bodies organised the national-level defence manufacturing conference under the Department of Defence Production in October 2025?

Ans
✗ 1. Ministry of Commerce
✓ 2. Ministry of Defence
✗ 3. Defence Research and Development Organisation
✗ 4. Indian Army

Question ID : **4410091499639**
Option 1 ID : **4410095923456**
Option 2 ID : **4410095923457**
Option 3 ID : **4410095923455**
Option 4 ID : **4410095923454**

QuickSarkari.com | WhatsApp Channel | Telegram: t.me/quick_sarkari

Q.6 **Which of the following was the immediate trigger of the 1857 Revolt?**

Ans
✗ 1. Doctrine of Lapse

✓ 2. Enfield rifle cartridges

✗ 3. Annexation of Awadh

✗ 4. Heavy taxation

Question ID : **4410091489453**
Option 1 ID : **4410095883863**
Option 2 ID : **4410095883862**
Option 3 ID : **4410095883861**
Option 4 ID : **4410095883864**

Q.7 **During the SAMANVAY 2025 in Bengaluru on October 29, 2025, the DRDO handed over how many Licensing Agreements for Transfer of Technology (LATOTs) to industry partners?**

Ans
✗ 1. 8 Licensing Agreements

✓ 2. 12 Licensing Agreements

✗ 3. 10 Licensing Agreements

✗ 4. 6 Licensing Agreements

Question ID : **4410091499851**
Option 1 ID : **4410095924299**
Option 2 ID : **4410095924301**
Option 3 ID : **4410095924300**
Option 4 ID : **4410095924298**

Q.8 **Where did ISRO perform the Gaganyaan Service Module Propulsion System (SMPS) hot tests in July 2025 successfully?**

Ans
✗ 1. Sriharikota

✓ 2. Mahendragiri

✗ 3. Thiruvananthapuram

✗ 4. Bengaluru

Question ID : **4410091499894**
Option 1 ID : **4410095924471**
Option 2 ID : **4410095924473**
Option 3 ID : **4410095924472**
Option 4 ID : **4410095924470**

QuickSarkari.com | WhatsApp Channel | Telegram: t.me/quick_sarkari

Q.9 What was the cumulative sanction amount by NABARD for rural infrastructure financing, as reported in the fiscal year 2024?

Ans
✗ 1. ₹9.0 lakh crore
✗ 2. ₹7.5 lakh crore
✓ 3. ₹8.2 lakh crore
✗ 4. ₹10 lakh crore

Question ID : **441009182484**
Option 1 ID : **441009721361**
Option 2 ID : **441009721358**
Option 3 ID : **441009721359**
Option 4 ID : **441009721360**

Q.10 Which session of the Committee of Experts on International Cooperation in Tax Matters was held at the United Nations Office in Geneva from October 21–24, 2025?

Ans
✗ 1. 30th
✗ 2. 34th
✓ 3. 31st
✗ 4. 25th

Question ID : **4410091496067**
Option 1 ID : **4410095909562**
Option 2 ID : **4410095909564**
Option 3 ID : **4410095909563**
Option 4 ID : **4410095909561**

Q.11 Which of the following launch vehicles successfully launched the CMS-03 communication satellite in its 5th operational flight on 02 November 2025?

Ans
✓ 1. LVM3
✗ 2. GSLV Mk-II
✗ 3. PSLV
✗ 4. SSLV

Question ID : **4410091511840**
Option 1 ID : **4410095971442**
Option 2 ID : **4410095971443**
Option 3 ID : **4410095971441**
Option 4 ID : **4410095971444**

QuickSarkari.com | WhatsApp Channel | Telegram: t.me/quick_sarkari

Q.12 On 25–26 September 2025, the 18th Governing Board Meeting of the SAARC Energy Centre was held in which city?

Ans
✔ 1. Islamabad
✘ 2. Colombo
✘ 3. Dhaka
✘ 4. Kathmandu

Question ID : **4410091496251**
Option 1 ID : **4410095910296**
Option 2 ID : **4410095910295**
Option 3 ID : **4410095910294**
Option 4 ID : **4410095910293**

Q.13 The 16th India-European Union Summit on January 27, 2026, was held in which Indian city?

Ans
✘ 1. Bengaluru
✘ 2. Mumbai
✔ 3. New Delhi
✘ 4. Hyderabad

Question ID : **4410091499633**
Option 1 ID : **4410095923432**
Option 2 ID : **4410095923430**
Option 3 ID : **4410095923433**
Option 4 ID : **4410095923431**

Q.14 The Pitt's India Act (1784) created which supervisory body in Britain?

Ans
✘ 1. Indian Council
✔ 2. Board of Control
✘ 3. Council of State
✘ 4. House of Lords Committee

Question ID : **4410091489983**
Option 1 ID : **4410095885959**
Option 2 ID : **4410095885957**
Option 3 ID : **4410095885958**
Option 4 ID : **4410095885960**

QuickSarkari.com | WhatsApp Channel | Telegram: t.me/quick_sarkari

Q.15 **The 9th edition of India Mobile Congress 2025 (IMC 2025) was organised by which two organisations?**

Ans
✗ 1. Telecom Regulatory Authority of India (TRAI) & Ministry of Electronics and Information Technology (MeitY)

✓ 2. Department of Telecommunications (DoT) & Cellular Operators Association of India (COAI)

✗ 3. Ministry of Electronics and Information Technology (MeitY) & National Association of Software and Service Companies (NASSCOM)

✗ 4. Department of Telecommunications (DoT) & Telecom Regulatory Authority of India (TRAI)

Question ID : **4410091492597**
Option 1 ID : **4410095896095**
Option 2 ID : **4410095896096**
Option 3 ID : **4410095896094**
Option 4 ID : **4410095896093**

Q.16 **The NAVYA initiative, launched in June 2025, primarily focuses on which age group of adolescent girls for vocational training and skill development?**

Ans
✗ 1. 10–14 years

✗ 2. 12–16 years

✗ 3. 18–20 years

✓ 4. 16–18 years

Question ID : **4410091504272**
Option 1 ID : **4410095941478**
Option 2 ID : **4410095941479**
Option 3 ID : **4410095941481**
Option 4 ID : **4410095941480**

Q.17 **Which of the following correctly explains the custom of coparcenary inheritance which was followed by the Mughals?**

Ans
✗ 1. Division of the inheritance where the youngest son inherited his father's estate.

✗ 2. Division of the inheritance where the eldest son inherited his father's estate.

✓ 3. Division of the inheritance amongst all the sons.

✗ 4. Division of inheritance amongst all the ministers.

Question ID : **441009177543**
Option 1 ID : **441009702008**
Option 2 ID : **441009702007**
Option 3 ID : **441009702006**
Option 4 ID : **441009702009**

QuickSarkari.com | WhatsApp Channel | Telegram: t.me/quick_sarkari

Q.18 In which year was the French East India Company founded?

Ans
✗ 1. 1720
✓ 2. 1664
✗ 3. 1620
✗ 4. 1640

Question ID : **4410091489415**
Option 1 ID : **4410095883712**
Option 2 ID : **4410095883709**
Option 3 ID : **4410095883710**
Option 4 ID : **4410095883711**

Q.19 The Indian Space Research Organisation (ISRO) in collaboration with which of the following institutions organised the second edition of ISRO STC Confluence on July 1 and 2, 2025?

Ans
✗ 1. Indian Institute of Technology (IIT) Guwahati
✗ 2. Indian Institute of Technology (IIT) Bombay
✗ 3. Indian Institute of Technology (IIT) Delhi
✓ 4. Indian Institute of Technology (IIT) Kharagpur

Question ID : **4410091492580**
Option 1 ID : **4410095896032**
Option 2 ID : **4410095896031**
Option 3 ID : **4410095896030**
Option 4 ID : **4410095896029**

Q.20 What do you call the market in which the securities of governments and public companies are traded?

Ans
✗ 1. Revenue Exchange
✓ 2. Stock Exchange
✗ 3. Equity Exchange
✗ 4. Fund Exchange

Question ID : **441009627304**
Option 1 ID : **4410092463371**
Option 2 ID : **4410092463368**
Option 3 ID : **4410092463369**
Option 4 ID : **4410092463370**

Section : **General Awareness1**

QuickSarkari.com | WhatsApp Channel | Telegram: t.me/quick_sarkari

Q.1 Which is the southernmost point of the Indian Union?

Ans
✗ 1. Nicobar Head
✗ 2. Kanyakumari
✗ 3. Cape Comorin
✓ 4. Indira Point

Question ID : **4410091491221**
Option 1 ID : **4410095890673**
Option 2 ID : **4410095890671**
Option 3 ID : **4410095890672**
Option 4 ID : **4410095890670**

Q.2 Free and compulsory education for children aged 6–14 years is guaranteed under which of the following Articles of the Indian Constitution?

Ans
✗ 1. Article 30 B
✗ 2. Article 14
✓ 3. Article 21 A
✗ 4. Article 24

Question ID : **4410091503584**
Option 1 ID : **4410095938547**
Option 2 ID : **4410095938544**
Option 3 ID : **4410095938545**
Option 4 ID : **4410095938546**

Q.3 Which month marks the onset of the southwest monsoon over the Kerala coast?

Ans
✗ 1. July
✓ 2. June
✗ 3. May
✗ 4. April

Question ID : **4410091490130**
Option 1 ID : **4410095886536**
Option 2 ID : **4410095886535**
Option 3 ID : **4410095886534**
Option 4 ID : **4410095886533**

Quick Sarkari

Q.4 According to the 2011 Census, which of the following North-Eastern states had the highest percentage of urban population?

Ans
✗ 1. Nagaland
✗ 2. Manipur
✗ 3. Meghalaya
✓ 4. Mizoram

Question ID : **4410091524 97**
Option 1 ID : **4410096051 39**
Option 2 ID : **4410096051 42**
Option 3 ID : **4410096051 40**
Option 4 ID : **4410096051 41**

Q.5 Which of the following are NOT a rich source of antioxidants?

Ans
✓ 1. Refined grains
✗ 2. Whole grain foods and cereals
✗ 3. Fruits
✗ 4. Vegetables

Question ID : **4410091128736**
Option 1 ID : **4410094450499**
Option 2 ID : **4410094450501**
Option 3 ID : **4410094450500**
Option 4 ID : **4410094450498**

Q.6 The provisions relating to the formation of new States and the alteration of areas, boundaries, or names of existing States are mentioned under which Article of the Indian Constitution?

Ans
✓ 1. Article 3
✗ 2. Article 2
✗ 3. Article 5
✗ 4. Article 4

Question ID : **4410091503617**
Option 1 ID : **4410095938673**
Option 2 ID : **4410095938672**
Option 3 ID : **4410095938675**
Option 4 ID : **4410095938674**

QuickSarkari.com | WhatsApp Channel | Telegram: t.me/quick_sarkari

Q.7 Which Indian season is known for retreating monsoons and cyclonic rainfall along the Tamil Nadu coast?

Ans
✗ 1. Summer
✓ 2. Southwest monsoon
✗ 3. Winter
✗ 4. Post-monsoon

Question ID : **4410091490138**
Option 1 ID : **4410095886566**
Option 2 ID : **4410095886567**
Option 3 ID : **4410095886565**
Option 4 ID : **4410095886568**

Q.8 Tooth decay starts when the pH of mouth is lower than _____.

Ans
✗ 1. 6.7
✗ 2. 6.4
✗ 3. 7.5
✓ 4. 5.5

Question ID : **441009616934**
Option 1 ID : **4410092421906**
Option 2 ID : **4410092421907**
Option 3 ID : **4410092421908**
Option 4 ID : **4410092421905**

Q.9 Which Article empowers the State Legislatures to establish tribunals for subjects under their jurisdiction?

Ans
✓ 1. Article 323B
✗ 2. Article 324
✗ 3. Article 323A
✗ 4. Article 311

Question ID : **4410091493676**
Option 1 ID : **4410095900321**
Option 2 ID : **4410095900322**
Option 3 ID : **4410095900320**
Option 4 ID : **4410095900323**

QuickSarkari.com | WhatsApp Channel | Telegram: t.me/quick_sarkari

Q.10 **Article 323 A of Indian Constitution is concerned with establishment of which type of tribunals?**

Ans
✗ 1. Tax tribunals
✓ 2. Administrative tribunals
✗ 3. Criminal tribunals
✗ 4. Civil tribunals

Question ID : **4410091270551**
Option 1 ID : **4410095014123**
Option 2 ID : **4410095014126**
Option 3 ID : **4410095014124**
Option 4 ID : **4410095014125**

Q.11 **Which island in India is known for hosting the only active coral reef formation in the Arabian Sea?**

Ans
✗ 1. North Sentinel Island
✗ 2. Havelock Island
✓ 3. Kavaratti Island
✗ 4. Barren Island

Question ID : **4410091491313**
Option 1 ID : **4410095891041**
Option 2 ID : **4410095891038**
Option 3 ID : **4410095891040**
Option 4 ID : **4410095891039**

Q.12 **As of November 2025, who is the Chairperson of the National Human Rights Commission of India?**

Ans
✗ 1. Mandhata Sitaram Murti
✓ 2. V. Ramasubramanian
✗ 3. Vijaya Bharathi Sayani
✗ 4. Preeti Sudan

Question ID : **441009502505**
Option 1 ID : **4410091965191**
Option 2 ID : **4410091965192**
Option 3 ID : **4410091965190**
Option 4 ID : **4410091965193**

QuickSarkari.com | WhatsApp Channel | Telegram: t.me/quick_sarkari

Q.13 'Why I Am an Atheist' is an autobiography of which Indian revolutionary?

Ans
✗ 1. Bal Gangadhar Tilak
✗ 2. Chandrashekhar Azad
✓ 3. Bhagat Singh
✗ 4. Rani Laxmi Bai

Question ID : **441009605637**
Option 1 ID : **4410092377668**
Option 2 ID : **4410092377666**
Option 3 ID : **4410092377665**
Option 4 ID : **4410092377667**

Q.14 Who founded the Servants of India Society in 1905 to train workers for public service?

Ans
✗ 1. Bal Gangadhar Tilak
✗ 2. M. G. Ranade
✗ 3. Dadabhai Naoroji
✓ 4. Gopal Krishna Gokhale

Question ID : **4410091489798**
Option 1 ID : **4410095885231**
Option 2 ID : **4410095885232**
Option 3 ID : **4410095885229**
Option 4 ID : **4410095885230**

Q.15 Which is the first book of Theravada Vinaya Pitaka that contains the basic training rules for monks and nuns along with the 'origin story' for each one?

Ans
✗ 1. Buddhavamsa
✗ 2. Samyutta
✓ 3. Suttavibhanga
✗ 4. Itivuttaka

Question ID : **441009608629**
Option 1 ID : **4410092389635**
Option 2 ID : **4410092389636**
Option 3 ID : **4410092389634**
Option 4 ID : **4410092389633**

QuickSarkari.com | WhatsApp Channel | Telegram: t.me/quick_sarkari

Q.16 **Which of the following statements accurately describes the function of the appendix in the human body?**

Ans
✗ 1. Functions as a vestigial structure with no known physiological significance
✗ 2. Plays a crucial role in digestion by secreting enzymes
✓ 3. Serves as a reservoir for beneficial gut bacteria
✗ 4. Acts as a storage organ for excess nutrients

Question ID : **441009616587**
Option 1 ID : **4410092420520**
Option 2 ID : **4410092420518**
Option 3 ID : **4410092420519**
Option 4 ID : **4410092420517**

Q.17 **Sentinel tribes are an indigenous people found in:**

Ans
✗ 1. Odisha
✓ 2. the Andaman islands
✗ 3. Lakshadweep
✗ 4. Jharkhand

Question ID : **441009639210**
Option 1 ID : **4410092510983**
Option 2 ID : **4410092510986**
Option 3 ID : **4410092510985**
Option 4 ID : **4410092510984**

Q.18 **All are equal before the law refers to which principle of the Preamble?**

Ans
✗ 1. Republic
✓ 2. Equality
✗ 3. Liberty
✗ 4. Justice

Question ID : **4410091503638**
Option 1 ID : **4410095938767**
Option 2 ID : **4410095938764**
Option 3 ID : **4410095938765**
Option 4 ID : **4410095938766**

QuickSarkari.com | WhatsApp Channel | Telegram: t.me/quick_sarkari

Q.19 The Council of Ministers at state level shall collectively be responsible to the State _____.

Ans
✗ 1. Legislative Council
✗ 2. Governor
✗ 3. Chief Minister
✓ 4. Legislative Assembly

Question ID : **4410099900**
Option 1 ID : **44100939383**
Option 2 ID : **44100939385**
Option 3 ID : **44100939386**
Option 4 ID : **44100939384**

Q.20 Which of the following Buddhist literatures is non-canonical, wherein stories relating to the former births of the Buddha are narrated?

Ans
✗ 1. Vinaya Pitaka
✗ 2. Abhidhamma Pitaka
✓ 3. Jataka Katha
✗ 4. Sutta Pitaka

Question ID : **441009609610**
Option 1 ID : **4410092393559**
Option 2 ID : **4410092393560**
Option 3 ID : **4410092393557**
Option 4 ID : **4410092393558**

Section : **General intelligence and Reasoning Ability**

Q.1 In a certain code language, 'ROME' is coded as '6735' and 'MEAR' is coded as '5863'. What is the code for 'A' in the given code language?

Ans
✗ 1. 3
✗ 2. 5
✓ 3. 8
✗ 4. 6

Question ID : **4410091483677**
Option 1 ID : **4410095861588**
Option 2 ID : **4410095861585**
Option 3 ID : **4410095861586**
Option 4 ID : **4410095861587**

QuickSarkari.com | WhatsApp Channel | Telegram: t.me/quick_sarkari

Q.2 Refer to the following number, symbol series and answer the question that follows. Counting to be done from left to right only. All numbers are single digit numbers only.

(Left) Ω 6 & 2 # 9 @ 4 ^ 8 * 5 ! 3 @ 1 7 % 1 $ 3 (Right)

How many such symbols are there, each of which is immediately preceded by an odd number but not immediately followed by an odd number?

Ans
✗ 1. Two
✗ 2. Four
✗ 3. Three
✓ 4. One

Question ID : **4410095795494**
Option 1 ID : **4410093135976**
Option 2 ID : **4410093135978**
Option 3 ID : **4410093135977**
Option 4 ID : **4410093135975**

Q.3 G, R, O, W, N and S live on six different floors of the same building. The lowermost floor in the building is numbered 1, the floor above it, number 2 and so on till the topmost floor is numbered 6. S lives on floor numbered 4. Only two people live between S and N. Only R lives between S and W. G lives immediately below S. Who lives on floor numbered 2?

Ans
✓ 1. O
✗ 2. S
✗ 3. G
✗ 4. W

Question ID : **4410091528199**
Option 1 ID : **4410096035990**
Option 2 ID : **4410096035992**
Option 3 ID : **4410096035989**
Option 4 ID : **4410096035991**

Q.4 Each of B, A, R, C, O, D and E has an exam on a different day of a week starting from Monday and ending on Sunday of the same week. O has exam on Friday. Only two people have exam between C and O. Only four people have exam between D and C. B has exam immediately after A. R doesn't have exam on Monday. How many people have exam between R and E?

Ans
✗ 1. Three
✓ 2. Four
✗ 3. Two
✗ 4. One

Question ID : **4410091528188**
Option 1 ID : **4410096035947**
Option 2 ID : **4410096035948**
Option 3 ID : **4410096035946**
Option 4 ID : **4410096035945**

Q.5 Refer to the given letter series and answer the question that follows. Counting to be done from left to right only.

(Left) B K D A A Z U M S Q H Z U L E M P Q U (Right)

How many such vowels are there, each of which is immediately preceded by a consonant and also immediately followed by a consonant?

Ans
1. One
2. Four
3. Three
4. Two

Question ID : **441009782011**
Option 1 ID : **4410093082047**
Option 2 ID : **4410093082050**
Option 3 ID : **4410093082049**
Option 4 ID : **4410093082048**

Q.6 In a certain code language, 'ROAD' is coded as '4591' and 'DOSA' is coded as '1759'. What is the code for 'S' in the given code language?

Ans
1. 7
2. 5
3. 1
4. 9

Question ID : **441009796493**
Option 1 ID : **4410093139971**
Option 2 ID : **4410093139973**
Option 3 ID : **4410093139972**
Option 4 ID : **4410093139974**

Q.7 Six people P, Q, R, S, T and U are sitting around a circular table facing towards the centre of the table. There are exactly two people between S and T.
Q sits to the immediate left of T. R sits second to right of T. U sits second to right of Q. What is the position of P with respect to Q?

Ans
1. Second to the left
2. Immediate left
3. Second to the right
4. Immediate right

Question ID : **4410091487571**
Option 1 ID : **4410095876676**
Option 2 ID : **4410095876675**
Option 3 ID : **4410095876677**
Option 4 ID : **4410095876678**

Q.8 G, R, O, W, N and S live on six different floors of the same building. The lowermost floor in the building is numbered 1, the floor above it, number 2 and so on till the topmost floor is numbered 6. Only R lives above O. N lives immediately below O. Only G lives below W. Who lives on floor numbered 3?

Ans
✔ 1. S
✘ 2. G
✘ 3. O
✘ 4. R

Question ID : **4410091528200**
Option 1 ID : **4410096035996**
Option 2 ID : **4410096035993**
Option 3 ID : **4410096035995**
Option 4 ID : **4410096035994**

Q.9 Refer to the following letter, number, symbol series and answer the question that follows. All numbers are single digit numbers only. Counting to be done from left to right only.

(Left) ? 2 2 J 7 X 8 8 Y F / B H \ F B A Y P 8 2 D % Y (Right)

How many such symbols are there, each of which is immediately preceded by a letter and also immediately followed by a number?

Ans
✔ 1. None
✘ 2. Three
✘ 3. One
✘ 4. Two

Question ID : **441009794935**
Option 1 ID : **4410093133742**
Option 2 ID : **4410093133741**
Option 3 ID : **4410093133739**
Option 4 ID : **4410093133740**

Q.10 Seven people, S, L, I, P, E, R and D are sitting in a row, facing north. No one sits to the left of L. Only four people sit between L and I. Only three people sit to the right of R. D sits to the immediate left of S. E is not an immediate neighbor of R. Who sits at the rightmost end of the line?

Ans
✘ 1. I
✘ 2. S
✔ 3. E
✘ 4. P

Question ID : **4410091528170**
Option 1 ID : **4410096035874**
Option 2 ID : **4410096035873**
Option 3 ID : **4410096035876**
Option 4 ID : **4410096035875**

Q.11 Refer to the following letter, number and symbol series and answer the question that follows. All numbers are single-digit numbers only. Counting to be done from left to right only.

(Left) ^ J G H Q $ W U X 7 & 5 P 2 S B 6 8 L 4 J M R $ (Right)

How many such numbers are there, each of which is immediately preceded by a letter and also immediately followed by a symbol?11356

Ans
✗ 1. None
✗ 2. Two
✓ 3. One
✗ 4. Three

Question ID : **441009785218**
Option 1 ID : **4410093094875**
Option 2 ID : **4410093094877**
Option 3 ID : **4410093094876**
Option 4 ID : **4410093094878**

Q.12 Refer to the following number series and answer the question that follows (all numbers are single-digit numbers only). Counting to be done from left to right only.

(Left) 7 1 5 6 9 3 7 8 4 3 8 5 2 7 4 1 6 2 4 1 5 7 3 7 4 9 (Right)

How many such odd numbers are there, each of which is immediately preceded by an even number and also immediately followed by an odd number?11033

Ans
✓ 1. Two
✗ 2. Three
✗ 3. Four
✗ 4. One

Question ID : **441009797017**
Option 1 ID : **4410093142067**
Option 2 ID : **4410093142070**
Option 3 ID : **4410093142069**
Option 4 ID : **4410093142068**

Q.13 BFAC is related to HLGI in a certain way based on the English alphabetical order. In the same way, DHCE is related to JNIK. To which of the following is FJEG related, following the same logic?

Ans
✗ 1. PLMK
✗ 2. PLKM
✗ 3. LPMK
✓ 4. LPKM

Question ID : **441009785953**
Option 1 ID : **4410093097818**
Option 2 ID : **4410093097817**
Option 3 ID : **4410093097816**
Option 4 ID : **4410093097815**

QuickSarkari.com | WhatsApp Channel | Telegram: t.me/quick_sarkari

Q.14 Select the pair which follows the same pattern as that followed by the two pairs given below. Both pairs follow the same pattern.

RTU : VXY
PRS : TVW

Ans
✗ 1. IMO : KPS
✗ 2. UXY : WZB
✓ 3. DFG : HJK
✗ 4. HKN : MQT

Question ID : **441009774509**
Option 1 ID : **4410093052042**
Option 2 ID : **4410093052041**
Option 3 ID : **4410093052039**
Option 4 ID : **4410093052040**

Q.15 Refer to the following letter series and answer the question that follows. Counting to be done from left to right only.

(Left) B C B M P H U J I K R F C S E A S X F I P O (Right)

How many such consonants are there, each of which is immediately preceded by a vowel and also immediately followed by a vowel?

Ans
✓ 1. TWO
✗ 2. NONE
✗ 3. THREE
✗ 4. ONE

Question ID : **441009797513**
Option 1 ID : **4410093144053**
Option 2 ID : **4410093144051**
Option 3 ID : **4410093144054**
Option 4 ID : **4410093144052**

Q.16 In a row of 241 students facing north, Mr. Lal is 69th from the left end. If Mr. Sam is 12th to the right of Mr. Lal, what is Mr. Sam's position from the right end of the line?

Ans
✗ 1. 172nd
✗ 2. 100th
✗ 3. 104th
✓ 4. 161st

Question ID : **4410091483660**
Option 1 ID : **4410095861520**
Option 2 ID : **4410095861518**
Option 3 ID : **4410095861519**
Option 4 ID : **4410095861517**

QuickSarkari.com | WhatsApp Channel | Telegram: t.me/quick_sarkari

Q.17 In a certain code language, 'ROAD' is coded as '9416' and 'DORM' is coded as '3691'.
What is the code for 'M' in the given code language?

Ans
✗ 1. 1
✗ 2. 6
✓ 3. 3
✗ 4. 9

Question ID : **441009796494**
Option 1 ID : **4410093139976**
Option 2 ID : **4410093139977**
Option 3 ID : **4410093139975**
Option 4 ID : **4410093139978**

Q.18 In a certain code language,
'A % B' means 'A is the father of B',
'A € B' means 'A is the wife of B',
'A ÷ B' means 'A is the daughter of B' and
'A ! B' means 'A is the brother of B'.
Based on the above, how is D related to X if 'D € E ! V ÷ W % X'?

Ans
✗ 1. Wife
✗ 2. Wife's father's sister
✓ 3. Brother's wife
✗ 4. Sister

Question ID : **4410091483773**
Option 1 ID : **4410095861965**
Option 2 ID : **4410095861968**
Option 3 ID : **4410095861967**
Option 4 ID : **4410095861966**

Q.19 Refer to the following letter series and answer the question that follows. Counting to be done from left to right only.

(Left) G T N S M E W X I G S T V M H L I C K C Z (Right)

How many such vowels are there, each of which is immediately preceded by a consonant and also immediately followed by a consonant?

Ans
✗ 1. Two
✗ 2. One
✓ 3. Three
✗ 4. None

Question ID : **441009797352**
Option 1 ID : **4410093143409**
Option 2 ID : **4410093143408**
Option 3 ID : **4410093143410**
Option 4 ID : **4410093143407**

QuickSarkari.com | WhatsApp Channel | Telegram: t.me/quick_sarkari

Q.20 In a certain code language,
'A ÷ B' means 'A is the sister of B',
'A ! B' means 'A is the brother of B',
'A % B' means 'A is the father of B' and
'A € B' means 'A is the wife of B'.

Based on the above, how is D related to X if 'D ÷ E € V % W ! X'?

Ans
✗ 1. Mother
✗ 2. Mother's mother
✗ 3. Sister
✓ 4. Mother's sister

Question ID : **4410091483779**
Option 1 ID : **4410095861989**
Option 2 ID : **4410095861991**
Option 3 ID : **4410095861990**
Option 4 ID : **4410095861992**

Section : **General intelligence and Reasoning Ability1**

Q.1 If 1 is added to each even digit and 1 is subtracted from each odd digit in the number 8759462, then how many digits will appear more than once in the new number thus formed?

Ans
✗ 1. Three
✗ 2. Two
✗ 3. One
✓ 4. None

Question ID : **441009584766**
Option 1 ID : **4410092294193**
Option 2 ID : **4410092294192**
Option 3 ID : **4410092294191**
Option 4 ID : **4410092294190**

QuickSarkari.com | WhatsApp Channel | Telegram: t.me/quick_sarkari

Q.2 Select the set in which the numbers are related in the same way as are the numbers of the following sets.
(NOTE: Operations should be performed on the whole numbers, without breaking down the numbers into their constituent digits. E.g. 13 – Operations on 13 such as adding to/subtracting from/multiplying with 13 can be performed. Breaking down 13 into 1 and 3 and then performing mathematical operations on 1 and 3 is not allowed.)

(88, 42, 149)
(63, 48, 130)

Ans
✗ 1. (86, 55, 165)
✗ 2. (77, 31, 154)
✓ 3. (91, 62, 172)
✗ 4. (52, 26, 149)

Question ID : **441009553209**
Option 1 ID : **4410092168151**
Option 2 ID : **4410092168152**
Option 3 ID : **4410092168150**
Option 4 ID : **4410092168153**

Q.3 Select the set in which the numbers are related in the same way as are the numbers of the following sets.
(NOTE: Operations should be performed on the whole numbers, without breaking down the numbers into their constituent digits. E.g. 13 – Operations on 13 such as adding to/subtracting from/multiplying with 13 can be performed. Breaking down 13 into 1 and 3 and then performing mathematical operations on 1 and 3 is not allowed.)

(19, 722, 19)
(17, 578, 17)

Ans
✓ 1. (16, 512, 16)
✗ 2. (18, 640, 18)
✗ 3. (15, 450, 10)
✗ 4. (14, 392, 7)

Question ID : **441009533153**
Option 1 ID : **4410092088016**
Option 2 ID : **4410092088019**
Option 3 ID : **4410092088017**
Option 4 ID : **4410092088018**

QuickSarkari.com | WhatsApp Channel | Telegram: t.me/quick_sarkari

Q.4 If 'A' stands for '÷', 'B' stands for '×', 'C' stands for '+' and 'D' stands for '−', what will come in place of the question mark (?) in the following equation?

4 B 3 D 10 A 2 C 2 = ? D 13

Ans
✔ 1. 22
✘ 2. 24
✘ 3. 26
✘ 4. 20

Question ID : **441009555217**
Option 1 ID : **4410092176183**
Option 2 ID : **4410092176184**
Option 3 ID : **4410092176185**
Option 4 ID : **4410092176182**

Q.5 Based on the English alphabetical order, three of the following four are alike in a certain way and thus form a group. Which is the one that does not belong to that group?
(Note: The odd one out is not based on the number of consonants/vowels or their position in the letter cluster.)10423

Ans
✘ 1. ZUPN
✘ 2. CXSQ
✔ 3. BWPR
✘ 4. WRMK

Question ID : **441009784285**
Option 1 ID : **4410093091143**
Option 2 ID : **4410093091146**
Option 3 ID : **4410093091144**
Option 4 ID : **4410093091145**

Q.6 Select the triad which follows the same pattern as that followed by the two triads given below. Both triads follow the same pattern.

RS - UV - XY
HI - KL - NO

Ans
✘ 1. YC - ZF - AH
✘ 2. HK - LM - NP
✘ 3. VX - WZ - YC
✔ 4. DE - GH - JK

Question ID : **441009774506**
Option 1 ID : **4410093052030**
Option 2 ID : **4410093052029**
Option 3 ID : **4410093052027**
Option 4 ID : **4410093052028**

QuickSarkari.com | WhatsApp Channel | Telegram: t.me/quick_sarkari

Q.7 Based on the English alphabetical order, three of the following four letter-cluster pairs are alike in a certain way and thus form a group. Which is the one that does not belong to that group?
(Note: The odd one out is not based on the number of consonants/vowels or their position in the letter cluster.)

Ans
1. IM-EH
2. EI-AC
3. KO-GJ
4. GK-CF

Question ID : **4410097858 75**
Option 1 ID : **4410093097505**
Option 2 ID : **4410093097503**
Option 3 ID : **4410093097506**
Option 4 ID : **4410093097504**

Q.8 Below are given two sets of numbers. In each set of numbers, a certain mathematical operation on the first number results in the second number. Similarly, a certain mathematical operation on the second number results in the third number, and so on. Which of the given options follows the same set of operations as in the question?
(NOTE – A two/three digit number cannot be broken into individual digits for operations. E.g. if 37 is followed by 10, the operation cannot be 3+7 as a two-digit number cannot be broken into individual digits.)

10 - 20 - 30 - 35 ; 7 - 17 - 27 - 32

Ans
1. 13 - 18 - 22 - 29
2. 50 - 60 - 70 - 75
3. 8 - 18 - 28 - 39
4. 6 - 16 - 36 - 45

Question ID : **441009528025**
Option 1 ID : **4410092067504**
Option 2 ID : **4410092067507**
Option 3 ID : **4410092067505**
Option 4 ID : **4410092067506**

Q.9 If 'A' stands for '÷', 'B' stands for '×', 'C' stands for '+' and 'D' stands for '–', what will come in place of question mark '?' in the following equation?

7 B 7 C 4 A 4 D 27 = ?

Ans
1. 21
2. 23
3. 24
4. 25

Question ID : **4410091522031**
Option 1 ID : **4410096011252**
Option 2 ID : **4410096011250**
Option 3 ID : **4410096011253**
Option 4 ID : **4410096011251**

QuickSarkari.com | WhatsApp Channel | Telegram: t.me/quick_sarkari

Q.10 **Which of the following letter-number clusters will replace the question mark (?) in the given series to make it logically complete?**

CTT 5 HPR −10 MLP 20 RHN −40 ?

Ans
✗ 1. LKP 78
✗ 2. NBV 67
✗ 3. NNM 70
✓ 4. WDL 80

Question ID : **4410091484903**
Option 1 ID : **4410095866093**
Option 2 ID : **4410095866095**
Option 3 ID : **4410095866096**
Option 4 ID : **4410095866094**

Q.11 **Based on the English alphabetical order, three of the following four letter-cluster pairs are alike in a certain way and thus form a group. Which is the one that does not belong to that group?**
(Note: The odd one out is not based on the number of consonants/vowels or their position in the letter cluster.)4692

Ans
✗ 1. PQ−ST
✗ 2. MN−PQ
✓ 3. KL−OP
✗ 4. DE−GH

Question ID : **441009778674**
Option 1 ID : **4410093068702**
Option 2 ID : **4410093068701**
Option 3 ID : **4410093068699**
Option 4 ID : **4410093068700**

Q.12 **What should come in place of ? in the given series?**

48 50 51 53 54 ?

Ans
✗ 1. 57
✗ 2. 58
✓ 3. 56
✗ 4. 55

Question ID : **4410091522205**
Option 1 ID : **4410096011936**
Option 2 ID : **4410096011937**
Option 3 ID : **4410096011934**
Option 4 ID : **4410096011935**

QuickSarkari.com | WhatsApp Channel | Telegram: t.me/quick_sarkari

Q.13 If 1 is subtracted from each even digit and 1 is added to each odd digit in the number 234681375472, what will be the sum of the digits which are second from the left and second from the right?

Ans
✗ 1. 10
✗ 2. 13
✓ 3. 12
✗ 4. 11

Question ID : **441009556295**
Option 1 ID : **4410092180494**
Option 2 ID : **4410092180497**
Option 3 ID : **4410092180496**
Option 4 ID : **4410092180495**

Q.14 What should come in place of ? in the given series?

23 30 45 68 99 ?

Ans
✗ 1. 140
✗ 2. 137
✓ 3. 138
✗ 4. 139

Question ID : **4410091522210**
Option 1 ID : **4410096011957**
Option 2 ID : **4410096011955**
Option 3 ID : **4410096011954**
Option 4 ID : **4410096011956**

Q.15 If 1 is added to each odd digit and 2 is subtracted from each even digit in the number 546834681357, what will be the sum of the digits which are second from the left and second from the right?

Ans
✗ 1. 9
✗ 2. 6
✓ 3. 8
✗ 4. 7

Question ID : **441009556294**
Option 1 ID : **4410092180493**
Option 2 ID : **4410092180490**
Option 3 ID : **4410092180492**
Option 4 ID : **4410092180491**

QuickSarkari.com | WhatsApp Channel | Telegram: t.me/quick_sarkari

Q.16 Select the correct mirror image of the given combination when the mirror is placed at 'PQ' as shown below.



Ans
✔ 1. 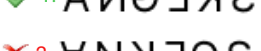
✗ 2. 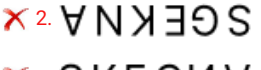
✗ 3. 
✗ 4. 

Question ID : **4410091471921**
Option 1 ID : **4410095815578**
Option 2 ID : **4410095815576**
Option 3 ID : **4410095815577**
Option 4 ID : **4410095815575**

Q.17 28 is related to 86 following a certain logic. Following the same logic, 32 is related to 98. To which of the following is 45 related, following the same logic?

(NOTE : Operations should be performed on the whole numbers, without breaking down the numbers into its constituent digits. E.g. 13 – Operations on 13 such as adding /subtracting /multiplying etc. to 13 can be performed. Breaking down 13 into 1 and 3 and then performing mathematical operations on 1 and 3 is not allowed.)

Ans
✗ 1. 135
✗ 2. 136
✔ 3. 137
✗ 4. 138

Question ID : **4410091267855**
Option 1 ID : **4410095004112**
Option 2 ID : **4410095004113**
Option 3 ID : **4410095004114**
Option 4 ID : **4410095004115**

QuickSarkari.com | WhatsApp Channel | Telegram: t.me/quick_sarkari

Q.18 What should come in place of ? in the given series?
83 75 60 38 9 ?

Ans
✗ 1. -26
✗ 2. -25
✗ 3. -28
✓ 4. -27

Question ID : **4410091522308**
Option 1 ID : **4410096012334**
Option 2 ID : **4410096012335**
Option 3 ID : **4410096012333**
Option 4 ID : **4410096012332**

Q.19 15 is related to 61 following a certain logic. Following the same logic, 22 is related to 89. To which of the following is 38 related, following the same logic?

(NOTE : Operations should be performed on the whole numbers, without breaking down the numbers into its constituent digits. E.g. 13 – Operations on 13 such as adding /subtracting /multiplying etc. to 13 can be performed. Breaking down 13 into 1 and 3 and then performing mathematical operations on 1 and 3 is not allowed.)

Ans
✗ 1. 151
✗ 2. 161
✗ 3. 157
✓ 4. 153

Question ID : **4410091267851**
Option 1 ID : **4410095004096**
Option 2 ID : **4410095004099**
Option 3 ID : **4410095004098**
Option 4 ID : **4410095004097**

Q.20 Which of the following letter-number clusters will replace the question mark (?) in the given series to make it logically complete?
SLD 30 WPH 45 ATL 60 EXP 75 ?

Ans
✗ 1. ICT 85
✗ 2. JCU 80
✓ 3. IBT 90
✗ 4. ICT 80

Question ID : **4410091503935**
Option 1 ID : **4410095940040**
Option 2 ID : **4410095940039**
Option 3 ID : **4410095940038**
Option 4 ID : **4410095940041**

Section : **Arithmetical and Numerical Ability**

QuickSarkari.com | WhatsApp Channel | Telegram: t.me/quick_sarkari

Q.1 The number 1976853 is divisible by which of the following numbers?

Ans
✗ 1. 85
✗ 2. 51
✗ 3. 73
✓ 4. 71

Question ID : **441009896084**
Option 1 ID : **4410093538407**
Option 2 ID : **4410093538408**
Option 3 ID : **4410093538409**
Option 4 ID : **4410093538406**

Q.2 $Simplify \dfrac{\left(\frac{18}{5}+\frac{17}{9}\ of\ \frac{9}{5}\right)}{\left(11-\frac{13}{9}\div\frac{5}{9}\right)}$

Ans
✗ 1. $\frac{6}{7}$
✓ 2. $\frac{5}{6}$
✗ 3. $\frac{8}{11}$
✗ 4. $\frac{1}{14}$

Question ID : **441009912564**
Option 1 ID : **4410093604508**
Option 2 ID : **4410093604507**
Option 3 ID : **4410093604510**
Option 4 ID : **4410093604509**

Q.3 The arithmetic mean of the observations 23, 30, 84, 88, 81, 85, 58, 42 and 85 is:

Ans
✗ 1. 59
✗ 2. 62
✗ 3. 54
✓ 4. 64

Question ID : **441009583220**
Option 1 ID : **4410092288007**
Option 2 ID : **4410092288009**
Option 3 ID : **4410092288008**
Option 4 ID : **4410092288006**

QuickSarkari.com | WhatsApp Channel | Telegram: t.me/quick_sarkari

Q.4 The monthly incomes of two friends, Gopal and Akshay, are in the ratio 6 : 7, respectively, and each of them saves ₹27,000 every month. If the ratio of their monthly expenditure is 2 : 3, find the monthly income of Gopal (in ₹).

Ans
✔ 1. 40,500
✘ 2. 41,500
✘ 3. 39,500
✘ 4. 56,700

Question ID : **441009854198**
Option 1 ID : **4410093369764**
Option 2 ID : **4410093369765**
Option 3 ID : **4410093369766**
Option 4 ID : **4410093369767**

Q.5 If $a = 2^3 \times 3^2 \times 5$ and $b = 2^2 \times 3 \times 7^2$, then which of the following statements is true?

Ans
✘ 1. a and b are coprime numbers
✘ 2. HCF of a and b is 23 × 32
✔ 3. HCF of a and b is 22 × 3
✘ 4. LCM of a and b is 22×3×5×72

Question ID : **4410091450521**
Option 1 ID : **4410095730550**
Option 2 ID : **4410095730553**
Option 3 ID : **4410095730551**
Option 4 ID : **4410095730552**

Q.6 Three pieces of ribbon, measuring 84 cm, 108 cm, and 132 cm, are to be cut into smaller pieces of equal length, without any ribbon left. What is the maximum possible length of each smaller piece?

Ans
✘ 1. 8 cm
✘ 2. 18 cm
✘ 3. 6 cm
✔ 4. 12 cm

Question ID : **4410091450658**
Option 1 ID : **4410095731091**
Option 2 ID : **4410095731093**
Option 3 ID : **4410095731090**
Option 4 ID : **4410095731092**

QuickSarkari.com | WhatsApp Channel | Telegram: t.me/quick_sarkari

Q.7 Simplify:

132 ÷ 11 × 5 of 3 − 17 × 21 ÷ 7 + 3 of 5 × 4

Ans
✗ 1. 181
✗ 2. 199
✗ 3. 171
✓ 4. 189

Question ID : **441009900602**
Option 1 ID : **4410093556478**
Option 2 ID : **4410093556481**
Option 3 ID : **4410093556480**
Option 4 ID : **4410093556479**

Q.8 By how much is 30% of 75 greater than 25% of 45?

Ans
✓ 1. 11.25
✗ 2. 8.25
✗ 3. 13.25
✗ 4. 6.25

Question ID : **441009856653**
Option 1 ID : **4410093379584**
Option 2 ID : **4410093379586**
Option 3 ID : **4410093379587**
Option 4 ID : **4410093379585**

Q.9 The number 450432 is divisible by which of the following numbers?

Ans
✓ 1. 23
✗ 2. 40
✗ 3. 7
✗ 4. 21

Question ID : **441009896086**
Option 1 ID : **4410093538414**
Option 2 ID : **4410093538417**
Option 3 ID : **4410093538415**
Option 4 ID : **4410093538416**

QuickSarkari.com | WhatsApp Channel | Telegram: t.me/quick_sarkari

Q.10 Find the value of m for which it satisfies

$$\left(\frac{25}{4}\right)^{4} \times \left(\frac{4}{25}\right)^{15} \times \left(\frac{25}{4}\right)^{11} = \left(\frac{4}{25}\right)^{7m+15}$$

Ans

✗ 1. $-\frac{12}{7}$

✗ 2. $-\frac{8}{7}$

✗ 3. $-\frac{20}{7}$

✓ 4. $-\frac{15}{7}$

Question ID : **441009913008**
Option 1 ID : **4410093606285**
Option 2 ID : **4410093606286**
Option 3 ID : **4410093606284**
Option 4 ID : **4410093606283**

Q.11 A chemist has two solutions of acid: Solution A has a 15% acid concentration, and Solution B has an 80% acid concentration. He wants to create a 60% acid solution. Find the ratio in which Solution A and Solution B must be mixed.

Ans

✗ 1. 5:4

✓ 2. 4:9

✗ 3. 3:2

✗ 4. 2:3

Question ID : **4410091536661**
Option 1 ID : **4410096069843**
Option 2 ID : **4410096069840**
Option 3 ID : **4410096069842**
Option 4 ID : **4410096069841**

Q.12 In what ratio must a grocer mix two varieties of wheat worth ₹61 per kg and ₹109 per kg, so that if he sells the mixture at ₹120 per kg, he may gain 20%?

Ans

✓ 1. 3 : 13

✗ 2. 13 : 18

✗ 3. 5 : 12

✗ 4. 5 : 14

Question ID : **441009539809**
Option 1 ID : **4410092114632**
Option 2 ID : **4410092114635**
Option 3 ID : **4410092114634**
Option 4 ID : **4410092114633**

Quick Sarkari

Q.13 **Find the simple interest (in ₹) on ₹5,000 as a sum borrowed at 5% per year rate of interest for 5 years.**

Ans
✗ 1. 1,190
✗ 2. 1,210
✗ 3. 1,290
✓ 4. 1,250

Question ID : **4410098522220**
Option 1 ID : **4410093361854**
Option 2 ID : **4410093361855**
Option 3 ID : **4410093361853**
Option 4 ID : **4410093361852**

Q.14 **The line graph below shows the number of students who participated in various inter-school competitions from January to June.**

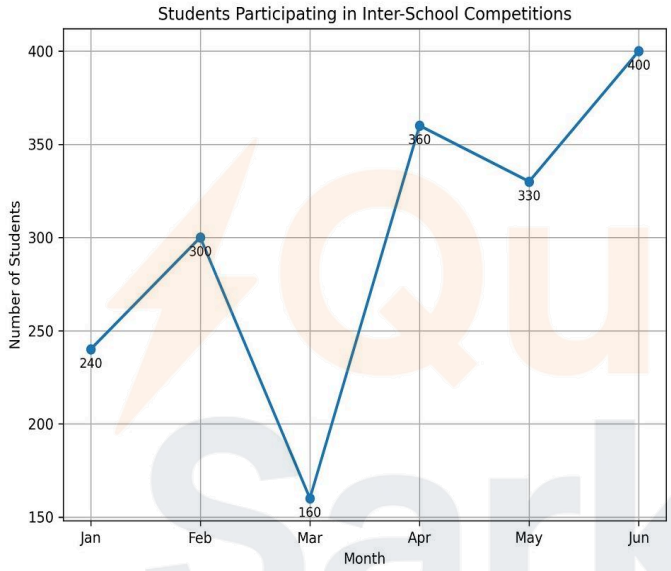

If the average number of students per month is taken as a benchmark, determine how many months exceed this average.

Ans
✗ 1. 5
✗ 2. 2
✓ 3. 4
✗ 4. 3

Question ID : **4410091577146**
Option 1 ID : **4410096229601**
Option 2 ID : **4410096229599**
Option 3 ID : **4410096229600**
Option 4 ID : **4410096229598**

QuickSarkari.com | WhatsApp Channel | Telegram: t.me/quick_sarkari

Q.15 Study the following pie-chart and answer the following question.

The pie chart shows the percentage distribution of employees in six different professions.
Total number of employees = 26,800

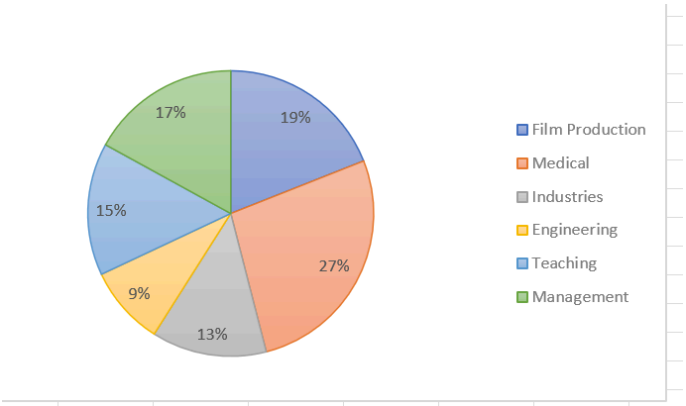

What is the difference between the total number of employees in teaching and medical professions together and the number of employees in the management profession?

Ans
1. 6820
2. 6700
3. 6980
4. 6910

Question ID : **4410091451348**
Option 1 ID : **4410095733971**
Option 2 ID : **4410095733968**
Option 3 ID : **4410095733970**
Option 4 ID : **4410095733969**

Q.16 Ashish has two grandsons, Ketan and Mahesh. 10-year-old Ketan gets some money from Ashish's wealth, and 11-year-old Mahesh gets the rest of the money. However, both will receive the money only when they turn 24 years old. Until then, the money is kept in a bank earning interest at 5% compounded annually. When both turn 24, they receive the same amount. How much had Ashish given Mahesh (in ₹) initially, if the total money with Ashish was ₹24,600?

Ans
1. 12,600
2. 11,750
3. 12,000
4. 12,950

Question ID : **441009543545**
Option 1 ID : **4410092129576**
Option 2 ID : **4410092129579**
Option 3 ID : **4410092129577**
Option 4 ID : **4410092129578**

QuickSarkari.com | WhatsApp Channel | Telegram: t.me/quick_sarkari

Q.17 Find the simplified value of $79^{-13} \div 79^{18} \times 79^{-17}$

Ans
✗ 1. 79-41
✓ 2. 79-48
✗ 3. 79-49
✗ 4. 79-53

Question ID : **441009896054**
Option 1 ID : **4410093538289**
Option 2 ID : **4410093538286**
Option 3 ID : **4410093538288**
Option 4 ID : **4410093538287**

Q.18 Baban distributed ₹23,100 between his two grandsons, 13-year-old Rakesh and 14-year-old Shivam, such that they get equal money when they turn 24 years old. Till then, the money is in a bank getting compound interest at 10% p.a. compounded annually. How much (in ₹) Baban deposited in the name of Shivam?

Ans
✗ 1. 10,750
✗ 2. 11,000
✗ 3. 12,450
✓ 4. 12,100

Question ID : **441009543548**
Option 1 ID : **4410092129591**
Option 2 ID : **4410092129589**
Option 3 ID : **4410092129590**
Option 4 ID : **4410092129588**

Q.19 The H.C.F. and the L.C.M. of two numbers are 21 and 315, respectively. If one of the numbers is 105, find the other one.

Ans
✗ 1. 130
✗ 2. 154
✓ 3. 63
✗ 4. 65

Question ID : **441009525493**
Option 1 ID : **4410092057392**
Option 2 ID : **4410092057394**
Option 3 ID : **4410092057391**
Option 4 ID : **4410092057393**

QuickSarkari.com | WhatsApp Channel | Telegram: t.me/quick_sarkari

Q.20 The average of five consecutive odd multiples of 17 is 119. Find the sum between the largest and smallest numbers.

Ans
✗ 1. 232
✗ 2. 282
✓ 3. 238
✗ 4. 218

Question ID : **4410091463809**
Option 1 ID : **4410095783372**
Option 2 ID : **4410095783373**
Option 3 ID : **4410095783370**
Option 4 ID : **4410095783371**

Section : **Arithmetical and Numerical Ability1**

Q.1 Divide ₹38,500 into three parts such that half of the first part, one-fourth of the second part, and one-eighth of the third part are equal. Find the first part (in ₹).

Ans
✓ 1. 5,500
✗ 2. 5,800
✗ 3. 5,200
✗ 4. 5,600

Question ID : **441009899491**
Option 1 ID : **4410093552034**
Option 2 ID : **4410093552037**
Option 3 ID : **4410093552035**
Option 4 ID : **4410093552036**

Q.2 A boat running downstream covers a distance of 12 km in 2 hours while for covering the same distance upstream, it takes 4 hours. What is the speed of the boat in still water?

Ans
✓ 1. $4.5\ \text{km/h}$
✗ 2. $4.15\ \text{km/h}$
✗ 3. $5.12\ \text{km/h}$
✗ 4. $5.22\ \text{km/h}$

Question ID : **4410091454440**
Option 1 ID : **4410095746149**
Option 2 ID : **4410095746150**
Option 3 ID : **4410095746151**
Option 4 ID : **4410095746152**

QuickSarkari.com | WhatsApp Channel | Telegram: t.me/quick_sarkari

Q.3 The mean proportional between $(2 + \sqrt{2})$ and $(8 + \sqrt{32})$ is:

Ans
✗ 1. $2\sqrt{2}+3$
✗ 2. $2\sqrt{2}-3$
✗ 3. $2\sqrt{2}+2$
✓ 4. $2\sqrt{2}+4$

Question ID : **4410091449598**
Option 1 ID : **4410095726910**
Option 2 ID : **4410095726911**
Option 3 ID : **4410095726909**
Option 4 ID : **4410095726908**

Q.4 Find the volume of oil contained in a conical vessel having a radius of 14 cm and a height of 21 cm. (Use $\pi = \frac{22}{7}$)

Ans
✗ 1. 4322 cm3
✗ 2. 3312 cm3
✗ 3. 4612 cm3
✓ 4. 4312 cm3

Question ID : **4410091537513**
Option 1 ID : **4410096073338**
Option 2 ID : **4410096073339**
Option 3 ID : **4410096073340**
Option 4 ID : **4410096073337**

Q.5 A retailer buys an item for ₹230 and spends ₹20 as overhead expenses. He sells the item for ₹360 and makes x% profit. The value of x is:

Ans
✗ 1. 34
✗ 2. 24
✓ 3. 44
✗ 4. 64

Question ID : **441009574174**
Option 1 ID : **4410092251819**
Option 2 ID : **4410092251818**
Option 3 ID : **4410092251816**
Option 4 ID : **4410092251817**

QuickSarkari

Q.6 The ratio of 45 hours:14 days is equivalent to:

Ans
✗ 1. 14:118
✗ 2. 17:115
✓ 3. 15:112
✗ 4. 18:119

Question ID : **441009545396**
Option 1 ID : **4410092136981**
Option 2 ID : **4410092136982**
Option 3 ID : **4410092136980**
Option 4 ID : **4410092136983**

Q.7 The circumference of the base of a cylindrical vessel is 200 cm, and its height is 44 cm. How many litres of water can it hold?

$\left(\text{Use } \pi = \frac{22}{7}\right)$

Ans
✗ 1. 135
✗ 2. 91
✓ 3. 140
✗ 4. 94

Question ID : **441009600355**
Option 1 ID : **4410092356539**
Option 2 ID : **4410092356538**
Option 3 ID : **4410092356537**
Option 4 ID : **4410092356540**

Q.8 If the radius of a cylinder is doubled and its height is tripled, how many times larger will the new volume be, compared to the original volume?

Ans
✗ 1. It will become 6 times larger
✗ 2. It will become 9 times larger
✓ 3. It will become12 times larger
✗ 4. It will become 3 times larger

Question ID : **4410091537884**
Option 1 ID : **4410096074805**
Option 2 ID : **4410096074806**
Option 3 ID : **4410096074803**
Option 4 ID : **4410096074804**

QuickSarkari.com | WhatsApp Channel | Telegram: t.me/quick_sarkari

Q.9 If the length of each edge of a cube is doubled, how many times does its surface area becomes?

Ans
✗ 1. 6
✗ 2. 2
✓ 3. 4
✗ 4. 8

Question ID : **4410091439927**
Option 1 ID : **4410095688421**
Option 2 ID : **4410095688423**
Option 3 ID : **4410095688422**
Option 4 ID : **4410095688420**

Q.10 Find the price of oil contained in a conical vessel having a radius of 14 cm and a height of 21 cm, if oil costs ₹2 per cm^3. (Use $\pi = \frac{22}{7}$)

Ans
✗ 1. ₹7,624
✗ 2. ₹8,634
✗ 3. ₹8,644
✓ 4. ₹8,624

Question ID : **4410091537525**
Option 1 ID : **4410096073387**
Option 2 ID : **4410096073388**
Option 3 ID : **4410096073386**
Option 4 ID : **4410096073385**

Q.11 The time taken by two trains running in opposite direction to cross a pillar in the centre of a platform are 24 seconds and 20 seconds, respectively. The trains take 21 seconds to cross each other. Find the ratio of the speeds of the two trains.

Ans
✓ 1. 1 : 3
✗ 2. 4 : 1
✗ 3. 3 : 2
✗ 4. 2 : 5

Question ID : **441009542574**
Option 1 ID : **4410092125695**
Option 2 ID : **4410092125692**
Option 3 ID : **4410092125693**
Option 4 ID : **4410092125694**

QuickSarkari.com | WhatsApp Channel | Telegram: t.me/quick_sarkari

Q.12 Two taps can fill a cistern in 3 hours and 67 hours, respectively. A third tap can empty it in 67 hours. How long (in hours) will it take to fill one-third of the empty cistern, if all the three taps are opened together?

Ans
✔ 1. 1
✘ 2. 4
✘ 3. 2
✘ 4. 3

Question ID : **4410091518659**
Option 1 ID : **4410092030055**
Option 2 ID : **4410092030058**
Option 3 ID : **4410092030056**
Option 4 ID : **4410092030057**

Q.13 A store offers successive discounts of 12% and 15% on a sweater. Find the selling price of the sweater after the discounts, if the marked price of the sweater is ₹6,000.

Ans
✘ 1. ₹4,288
✘ 2. ₹4,444
✔ 3. ₹4,488
✘ 4. ₹4,422

Question ID : **4410091536928**
Option 1 ID : **4410096071004**
Option 2 ID : **4410096071005**
Option 3 ID : **4410096071003**
Option 4 ID : **4410096071006**

Q.14 The base of a triangle is 12 cm and its height is 8 cm. Find the area of the triangle.

Ans
✘ 1. 24 cm²
✘ 2. 36 cm²
✘ 3. 42 cm²
✔ 4. 48 cm²

Question ID : **4410091460117**
Option 1 ID : **4410095768649**
Option 2 ID : **4410095768650**
Option 3 ID : **4410095768651**
Option 4 ID : **4410095768652**

QuickSarkari.com | WhatsApp Channel | Telegram: t.me/quick_sarkari

Q.15 A table was bought for ₹3830 and a repairing charge of ₹950 was paid on it. It is sold at a profit of 32%, after a discount of 45% on its marked price. The marked price of the table is:

Ans
✗ 1. ₹11,544
✗ 2. ₹11,426
✓ 3. ₹11,472
✗ 4. ₹11,448

Question ID : **441009894382**
Option 1 ID : **4410093531600**
Option 2 ID : **4410093531601**
Option 3 ID : **4410093531598**
Option 4 ID : **4410093531599**

Q.16 A, B and C can do a piece of work in 3, 4 and 12 days respectively. How long (in days) will they take to do twice the same amount of work, working together?

Ans
✗ 1. 4
✗ 2. 9
✓ 3. 3
✗ 4. 6

Question ID : **441009897453**
Option 1 ID : **4410093543885**
Option 2 ID : **4410093543884**
Option 3 ID : **4410093543882**
Option 4 ID : **4410093543883**

Q.17 Find the length of the diagonal of a cube whose volume is 4913 cm^3.

Ans
✗ 1. $17\sqrt{5}$ cm
✓ 2. $17\sqrt{3}$ cm
✗ 3. $15\sqrt{3}$ cm
✗ 4. $15\sqrt{5}$ cm

Question ID : **4410091537855**
Option 1 ID : **4410096074690**
Option 2 ID : **4410096074687**
Option 3 ID : **4410096074688**
Option 4 ID : **4410096074689**

QuickSarkari.com | WhatsApp Channel | Telegram: t.me/quick_sarkari

Q.18 A cyclic quadrilateral has side lengths 4 cm, 8 cm, 11 cm, and 13 cm. Find its area.

Ans
✗ 1. 64 cm2
✗ 2. 56 cm2
✗ 3. 84 cm2
✓ 4. 70 cm2

Question ID : **4410091460066**
Option 1 ID : **4410095768450**
Option 2 ID : **4410095768449**
Option 3 ID : **4410095768452**
Option 4 ID : **4410095768451**

Q.19 Arvind bought an article for ₹x. He sold it to Biru at a loss of 16%. Biru spent ₹174 on its transportation and sold it to Minu at a profit of 60%. If Minu bought it for ₹1,992, then what is the value of x?

Ans
✗ 1. 1,273
✗ 2. 1,321
✓ 3. 1,275
✗ 4. 1,229

Question ID : **441009561496**
Option 1 ID : **4410092201254**
Option 2 ID : **4410092201253**
Option 3 ID : **4410092201251**
Option 4 ID : **4410092201252**

Q.20 Three friends P, Q, and R started a business, investing ₹4400, ₹2400, and ₹7000, respectively. After 4 months, P withdrew ₹520, Q withdrew ₹430, and R invested ₹550 more. At the end of the year, there was a profit of ₹21,000, out of which they donated 13%. What was R's profit share (in ₹)?

Ans
✗ 1. 9925
✗ 2. 9959
✗ 3. 9941
✓ 4. 9945

Question ID : **441009898381**
Option 1 ID : **4410093547595**
Option 2 ID : **4410093547597**
Option 3 ID : **4410093547596**
Option 4 ID : **4410093547594**

Section : **Test of Hindi Language and Comprehension**

QuickSarkari.com | WhatsApp Channel | Telegram: t.me/quick_sarkari

Q.1 'बहुत लोग हो जाएँ तो काम खराब हो जाता है' अर्थ के लिए सही लोकोक्ति क्या है?

Ans
✔ 1. बहुते जोगी मठ उजाड़
✘ 2. बासी कढ़ी में उबाल आया
✘ 3. फलूदा खाते दाँत टूटे तो टूटे
✘ 4. मीठा मीठा गप कड़वा कड़वा थू

Question ID : **4410091455815**
Option 1 ID : **4410095751605**
Option 2 ID : **4410095751604**
Option 3 ID : **4410095751603**
Option 4 ID : **4410095751606**

Q.2 बैठक में हिसाब किताब की जाँच करने वाले व्यक्ति ने पिछले वर्ष के खर्चों और आमदनी का विस्तृत हिसाब किताब प्रस्तुत किया।

रेखांकित वाक्यांश के लिए सार्थक शब्द क्या है?

Ans
✘ 1. अभिजात
✘ 2. अनुच्चरित
✔ 3. अंकेक्षक
✘ 4. उल्लिखित

Question ID : **4410091456750**
Option 1 ID : **4410095755308**
Option 2 ID : **4410095755307**
Option 3 ID : **4410095755306**
Option 4 ID : **4410095755309**

Q.3 निम्न में से सर्वोचित क्रिया शब्द से वाक्य का रिक्त स्थान पूर्ण करें--

बड़ों से उनका अनुभव ..... जीने का आधार बनता है।

Ans
✘ 1. परखना
✘ 2. देखना
✔ 3. जानना
✘ 4. मानना

Question ID : **441009449890**
Option 1 ID : **4410091758231**
Option 2 ID : **4410091758232**
Option 3 ID : **4410091758230**
Option 4 ID : **4410091758229**

QuickSarkari.com | WhatsApp Channel | Telegram: t.me/quick_sarkari

Q.4 ' जहाँ नदियों का मिलन हो ' वाक्यांश के लिए सार्थक शब्द कौन सा है?

Ans
✗ 1. अगम
✗ 2. सुगम
✓ 3. संगम
✗ 4. दुर्गम

Question ID : **441009474590**
Option 1 ID : **4410091853775**
Option 2 ID : **4410091853773**
Option 3 ID : **4410091853774**
Option 4 ID : **4410091853776**

Q.5 समयवाचक क्रिया विशेषण से वाक्य पूर्ण करें –
कामरान बहुत फुर्तीला है वह _____ काम पूरा कर लेता है 2835

Ans
✗ 1. एकदम
✗ 2. तड़ातड़
✓ 3. झटपट
✗ 4. अच्छी तरह

Question ID : **441009449195**
Option 1 ID : **4410091755450**
Option 2 ID : **4410091755452**
Option 3 ID : **4410091755449**
Option 4 ID : **4410091755451**

Q.6 'जो शोक करने योग्य न हो' वाक्यांश के लिए एक शब्द होगा -

Ans
✗ 1. कृतज्ञ
✗ 2. पार्थिव
✗ 3. कृतघ्न
✓ 4. अशोच्य

Question ID : **441009477077**
Option 1 ID : **4410091863722**
Option 2 ID : **4410091863724**
Option 3 ID : **4410091863723**
Option 4 ID : **4410091863721**

QuickSarkari.com | WhatsApp Channel | Telegram: t.me/quick_sarkari

Q.7 निम्नलिखित वाक्यों में उनके प्रथम तथा अन्तिम अंश संख्या 1 और 6 के अन्तर्गत दिए गए हैं। बीच वाले चार अंश (य), (र), (ल), (व) बिना क्रम के हैं। चारों अंशों को उचित क्रमानुसार व्यवस्थित कर सही विकल्प चुनिए।
(1) सकारात्मक सोच
(य) ही जीवन का
(र) जो हमारे
(ल) मूल आधार है
(व) जीवन को
(6) सार्थक बनाती है।4608

Ans
✗ 1. र ल य व
✗ 2. ल य र व
✗ 3. व ल य र
✓ 4. य ल र व

Question ID : **4410091476363**
Option 1 ID : **4410091860867**
Option 2 ID : **4410091860866**
Option 3 ID : **4410091860865**
Option 4 ID : **4410091860868**

Q.8 निम्नलिखित वाक्यांश के लिए सार्थक शब्द चुनिये
भारत और यूरोप से संबंध

Ans
✓ 1. भारोपीय
✗ 2. इंडिक
✗ 3. भाखा
✗ 4. संबंधनिरपेक्ष

Question ID : **4410091489685**
Option 1 ID : **4410095884776**
Option 2 ID : **4410095884775**
Option 3 ID : **4410095884774**
Option 4 ID : **4410095884773**

Q.9 सुमित आज नहीं आयेगा। वाक्य में ..... क्रिया-विशेषण है।
दिए गए विकल्प में से क्रिया-विशेषण के उचित भेद को चुन कर वाक्य पूर्ण करें -

Ans
✗ 1. रीतिवाचक
✗ 2. परिमाणवाचक
✗ 3. स्थानवाचक
✓ 4. कालवाचक

Question ID : **4410091456050**
Option 1 ID : **4410095752555**
Option 2 ID : **4410095752557**
Option 3 ID : **4410095752554**
Option 4 ID : **4410095752556**

Q.10 'अपनी करनी पार उतरनी' लोकोक्ति का सही अर्थ है-

Ans
✔ 1. मनुष्य को अपने कर्म के अनुसार ही फल मिलता है
✘ 2. अपनी इज्जत अपने हाथ होती है
✘ 3. कार्य के विपरीत फल की अपेक्षा रखना व्यर्थ है
✘ 4. अपने किये बिना काम नहीं होता।

Question ID : **4410094455 17**
Option 1 ID : **4410091740750**
Option 2 ID : **4410091740749**
Option 3 ID : **4410091740751**
Option 4 ID : **4410091740752**

Q.11 'भरी गगरिया चुपके जाय' लोकोक्ति का क्या अर्थ है?

Ans
✘ 1. बुढ़ापे में अनेक कष्ट
✘ 2. गागर में पानी भरना
✔ 3. ज्ञानी आदमी गंभीर होता है
✘ 4. भूख लगी हो तो कोई नहीं होता

Question ID : **4410091456716**
Option 1 ID : **4410095755176**
Option 2 ID : **4410095755177**
Option 3 ID : **4410095755174**
Option 4 ID : **4410095755175**

Q.12 दिए गए वाक्य में रिक्त स्थान के लिए उपयुक्त क्रिया-विशेषण चुनें।
यह बात ..... पूरे गाँव में फैल गई।

Ans
✘ 1. अक्सर
✘ 2. बहुत
✘ 3. अधिक
✔ 4. धीरे-धीरे

Question ID : **4410091452323**
Option 1 ID : **4410095737685**
Option 2 ID : **4410095737686**
Option 3 ID : **4410095737687**
Option 4 ID : **4410095737684**

QuickSarkari.com | WhatsApp Channel | Telegram: t.me/quick_sarkari

Q.13 निम्नलिखित मुहावरे का अर्थ बताइए
मीन मेख निकालना

Ans
✗ 1. हार जाना
✗ 2. कल्पना करना
✗ 3. वश में करना
✓ 4. त्रुटि निकालना

Question ID : **4410091489887**
Option 1 ID : **4410095885587**
Option 2 ID : **4410095885586**
Option 3 ID : **4410095885585**
Option 4 ID : **4410095885588**

Q.14 दिए गए वाक्य को सही क्रम में लगाइए-
(1)वहाँ इतनी तेज़ ठंड पड़ी कि (2)मौत हो गई (3)तमाम छोटे-मोटे जानवरों की (4)उस ठंड में

Ans
✗ 1. 1 2 3 4
✗ 2. 4 2 1 3
✓ 3. 1 4 3 2
✗ 4. 4 1 2 3

Question ID : **4410091438186**
Option 1 ID : **4410095681426**
Option 2 ID : **4410095681427**
Option 3 ID : **4410095681425**
Option 4 ID : **4410095681428**

Q.15 'कागज़ी घोड़े दौड़ाना' मुहावरे का क्या अर्थ है?

Ans
✗ 1. कागज़ बेकार करना
✗ 2. कागज़ से घोड़े बनाना
✗ 3. झगड़ा होना
✓ 4. केवल लिखा-पढ़ी करते रहना

Question ID : **4410091456593**
Option 1 ID : **4410095754696**
Option 2 ID : **4410095754695**
Option 3 ID : **4410095754697**
Option 4 ID : **4410095754694**

QuickSarkari.com | WhatsApp Channel | Telegram: t.me/quick_sarkari

Q.16 रेखांकित कारक चिह्न के आधार पर कारक के उचित भेद का चुनाव करें-
पक्षी पेड़ पर बसेरा करते हैं। वाक्य में ..... कारक है।

Ans
✔ 1. अधिकरण कारक
✘ 2. करण कारक
✘ 3. अपादान कारक
✘ 4. संबंध कारक

Question ID : **4410091456100**
Option 1 ID : **4410095752752**
Option 2 ID : **4410095752750**
Option 3 ID : **4410095752753**
Option 4 ID : **4410095752751**

Q.17 दिए गए वाक्य में रिक्त स्थान के लिए उपयुक्त क्रिया चुनें।
कमरे की छत नीचे आ ..... ।

Ans
✘ 1. पटकी
✔ 2. गिरी
✘ 3. बैठी
✘ 4. लेटी

Question ID : **4410091452152**
Option 1 ID : **4410095737022**
Option 2 ID : **4410095737020**
Option 3 ID : **4410095737023**
Option 4 ID : **4410095737021**

Q.18 वह परीक्षा में ऐसे बैठा था जैसे उसका मन किसी ओर ना हो, इसलिए उसने अपने उत्तरपत्रिका में ध्यान भी नहीं दिया।
रेखांकित वाक्यांश के लिए सार्थक शब्द क्या है?

Ans
✘ 1. अधिकृत
✘ 2. प्राक्कथन
✘ 3. प्रत्यागत
✔ 4. अन्यमनस्क

Question ID : **4410091456776**
Option 1 ID : **4410095755413**
Option 2 ID : **4410095755410**
Option 3 ID : **4410095755411**
Option 4 ID : **4410095755412**

QuickSarkari.com | WhatsApp Channel | Telegram: t.me/quick_sarkari

Q.19 यह ज़मीन मेरी है। वाक्य में ..... विशेषण है।
दिए गए विकल्प में से विशेषण के उचित भेद को चुन कर वाक्य पूर्ण करें -

Ans
✗ 1. परिमाणवाचक
✗ 2. गुणवाचक
✗ 3. संख्यावाचक
✓ 4. सार्वनामिक

Question ID : **4410091456070**
Option 1 ID : **4410095752634**
Option 2 ID : **4410095752635**
Option 3 ID : **4410095752637**
Option 4 ID : **4410095752636**

Q.20 'देह धरे के दंड हैं' लोकोक्ति का क्या अर्थ है?

Ans
✗ 1. विश्राम करना
✓ 2. शरीर है तो कष्ट भी रहेगा
✗ 3. केवल दिखावटी शान
✗ 4. किसी को दंड देना

Question ID : **4410091456665**
Option 1 ID : **4410095754976**
Option 2 ID : **4410095754974**
Option 3 ID : **4410095754977**
Option 4 ID : **4410095754975**

Section : **Test of Hindi Language and Comprehension1**

Q.1 निम्नलिखित वाक्य में रेखांकित शब्द का विलोम शब्द कौन सा है?
इस दुकान से <u>उधार</u> सामान लेना मना है।

Ans
✗ 1. ज़्यादा
✗ 2. कम
✗ 3. जीर्ण
✓ 4. नकद

Question ID : **4410091456971**
Option 1 ID : **4410095756187**
Option 2 ID : **4410095756188**
Option 3 ID : **4410095756189**
Option 4 ID : **4410095756190**

QuickSarkari.com | WhatsApp Channel | Telegram: t.me/quick_sarkari

Q.2 आगामी महीनों में मौसम में परिवर्तन होने की संभावना है।

वाक्य में प्रयुक्त आगामी शब्द का विलोम क्या है।

Ans
✗ 1. आसन्न
✓ 2. विगत
✗ 3. संभावित
✗ 4. निर्धारित

Question ID : **4410091455245**
Option 1 ID : **4410095749261**
Option 2 ID : **4410095749264**
Option 3 ID : **4410095749263**
Option 4 ID : **4410095749262**

Q.3 जो बड़ों और गुरुजनों का आदर करता है, वह समाज में आदृत स्थान प्राप्त करता है।

वाक्य में प्रयुक्त आदृत शब्द का विलोम क्या है।

Ans
✓ 1. तिरस्कृत
✗ 2. प्रतिष्ठित
✗ 3. सम्मानित
✗ 4. अर्णव

Question ID : **4410091455334**
Option 1 ID : **4410095749625**
Option 2 ID : **4410095749627**
Option 3 ID : **4410095749626**
Option 4 ID : **4410095749628**

Q.4 मानसून के समय समुद्र की लहरें बहुत ऊँची हो जाती हैं।

वाक्य में प्रयुक्त समुद्र शब्द का पर्यायवाची क्या है?

Ans
✗ 1. सौमित्र
✓ 2. अंबुधि
✗ 3. उपद्रव
✗ 4. व्याधि

Question ID : **4410091455620**
Option 1 ID : **4410095750799**
Option 2 ID : **4410095750801**
Option 3 ID : **4410095750802**
Option 4 ID : **4410095750800**

QuickSarkari.com | WhatsApp Channel | Telegram: t.me/quick_sarkari

Q.5 बदाम खाओ स्वस्थ रहो ।

उपरोक्त वाक्य के किस भाग में वर्तनी संबंधी अशुद्धि है –

Ans
✗ 1. स्वस्थ
✗ 2. रहो
✗ 3. खाओ
✓ 4. बदाम

Question ID : **441009445077**
Option 1 ID : **4410091738991**
Option 2 ID : **4410091738992**
Option 3 ID : **4410091738990**
Option 4 ID : **4410091738989**

Q.6 दिए गए वाक्य के किस भाग में त्रुटि है?
राष्ट्रिय भंडार में संगृहीत स्मृतियाँ हमारी सांस्कृतिक धरोहर को सुरक्षित रखती हैं।

Ans
✗ 1. संगृहीत
✗ 2. सांस्कृतिक
✗ 3. सुरक्षित
✓ 4. राष्ट्रिय

Question ID : **4410091456454**
Option 1 ID : **4410095754155**
Option 2 ID : **4410095754156**
Option 3 ID : **4410095754157**
Option 4 ID : **4410095754154**

Q.7 नीचे दिए गए रेखांकित शब्दके लिए उपयुक्त विलोम शब्द चुनकर रिक्त स्थान पूर्ण कीजिए।
"योग और प्राणायाम से व्यक्ति नीरुजता प्राप्त करता है, जबकि गलत खान-पान से _____ का सामना करना पड़ता है।"

Ans
✗ 1. अभक्ष्य
✗ 2. तंदुरुस्ती
✗ 3. अपक्व
✓ 4. रुग्णता

Question ID : **4410091435544**
Option 1 ID : **4410095670697**
Option 2 ID : **4410095670694**
Option 3 ID : **4410095670696**
Option 4 ID : **4410095670695**

QuickSarkari.com | WhatsApp Channel | Telegram: t.me/quick_sarkari

Q.8 निम्नलिखित वाक्य में रेखांकित शब्द का पर्यायवाची शब्द कौन-सा है?
तुम्हारा पेशा उन्हें बहुत पसंद आया।

Ans
✗ 1. घर
✗ 2. कार्यालय
✗ 3. पैसा
✓ 4. काम-काज

Question ID : **4410091456878**
Option 1 ID : **4410095755815**
Option 2 ID : **4410095755817**
Option 3 ID : **4410095755814**
Option 4 ID : **4410095755816**

Q.9 दिए गए वाक्य के किस भाग में त्रुटि है?
इतिहासकार ने अभिलेखों की प्रतिलीपी के आधार पर राजवंश की वंशावली पुनर्निर्मित की।

Ans
✗ 1. राजवंश
✓ 2. प्रतिलीपी
✗ 3. पुनर्निर्मित
✗ 4. अभिलेखों

Question ID : **4410091456486**
Option 1 ID : **4410095754284**
Option 2 ID : **4410095754283**
Option 3 ID : **4410095754285**
Option 4 ID : **4410095754282**

Q.10 दिए गए वाक्य के किस भाग में त्रुटि है?
सैकड़ों मल्लाह तुफान की चपेट में आ गए।

Ans
✗ 1. आ गए।
✓ 2. तुफान की
✗ 3. सैकड़ों मल्लाह
✗ 4. चपेट में

Question ID : **4410091456772**
Option 1 ID : **4410095755397**
Option 2 ID : **4410095755395**
Option 3 ID : **4410095755394**
Option 4 ID : **4410095755396**

QuickSarkari.com | WhatsApp Channel | Telegram: t.me/quick_sarkari

Comprehension:

नीचे दिए गए गद्यांश को पढ़कर निम्नलिखित पाँच प्रश्नों के उत्तर दिए गए विकल्पों में से चुनें।

आज बड़े ही आनंद का दिन है कि इस छोटे से नगर बलिया में हम इतने मनुष्यों को बड़े उत्साह से एक स्थान पर देखते हैं। इस अभागे आलसी देश में जो कुछ हो जाए वही बहुत कुछ है। बनारस ऐसे-ऐसे बड़े नगरों में जब कुछ नहीं होता तो यह हम क्यों न कहेंगे कि बलिया में जो कुछ हमने देखा, वह बहुत ही प्रशंसा के योग्य है। इस उत्साह का मूल कारण जो हमने खोजा, तो प्रगट हो गया कि इस देश के भाग्य से आजकल यहाँ सारा समाज ही ऐसा एकत्र है। जहाँ रॉबर्ट साहब बहादुर जैसे कलेक्टर हों, वहाँ क्यों न ऐसा समाज हो। जिस देश और काल में ईश्वर ने अकबर को उत्पन्न किया था, उसी में अबुल फजल, बीरबल, टोडरमल को भी उत्पन्न किया। यहाँ रॉबर्ट साहब अकबर हैं, तो मुंशी चतुर्भुज सहाय, मुंशी बिहारीलाल साहब आदि अबुल फजल और टोडरमल हैं। हमारे हिंदुस्तानी लोग तो रेल की गाड़ी हैं। यद्यपि फर्स्ट क्लास, सेकेंड क्लास आदि गाड़ी बहुत अच्छी-अच्छी और बड़े-बड़े महसूल की इस ट्रेन में लगी हैं पर बिना इंजिन ये सब नहीं चल सकतीं, वैसे ही हिंदुस्तानी लोगों को कोई चलानेवाला हो, तो ये क्या नहीं कर सकते।

SubQuestion No : 11

Q.11 नीचे दिए गए विकल्पों में से उपरोक्त गद्यांश का भाव पहचानें।

Ans

✗ 1. भारत से घृणा

✗ 2. राजाओं महाराजाओं की प्रशंसा

✓ 3. भारतीयों को जगाने की कोशिश

✗ 4. भारतीयों की उपेक्षा

Question ID : **441009438461**
Option 1 ID : **4410091712755**
Option 2 ID : **4410091712757**
Option 3 ID : **4410091712756**
Option 4 ID : **4410091712754**

Comprehension:

नीचे दिए गए गद्यांश को पढ़कर निम्नलिखित पाँच प्रश्नों के उत्तर दिए गए विकल्पों में से चुनें।

आज बड़े ही आनंद का दिन है कि इस छोटे से नगर बलिया में हम इतने मनुष्यों को बड़े उत्साह से एक स्थान पर देखते हैं। इस अभागे आलसी देश में जो कुछ हो जाए वही बहुत कुछ है। बनारस ऐसे-ऐसे बड़े नगरों में जब कुछ नहीं होता तो यह हम क्यों न कहेंगे कि बलिया में जो कुछ हमने देखा, वह बहुत ही प्रशंसा के योग्य है। इस उत्साह का मूल कारण जो हमने खोजा, तो प्रगट हो गया कि इस देश के भाग्य से आजकल यहाँ सारा समाज ही ऐसा एकत्र है। जहाँ रॉबर्ट साहब बहादुर जैसे कलेक्टर हों, वहाँ क्यों न ऐसा समाज हो। जिस देश और काल में ईश्वर ने अकबर को उत्पन्न किया था, उसी में अबुल फजल, बीरबल, टोडरमल को भी उत्पन्न किया। यहाँ रॉबर्ट साहब अकबर हैं, तो मुंशी चतुर्भुज सहाय, मुंशी बिहारीलाल साहब आदि अबुल फजल और टोडरमल हैं। हमारे हिंदुस्तानी लोग तो रेल की गाड़ी हैं। यद्यपि फर्स्ट क्लास, सेकेंड क्लास आदि गाड़ी बहुत अच्छी-अच्छी और बड़े-बड़े महसूल की इस ट्रेन में लगी हैं पर बिना इंजिन ये सब नहीं चल सकतीं, वैसे ही हिंदुस्तानी लोगों को कोई चलानेवाला हो, तो ये क्या नहीं कर सकते।

SubQuestion No : 12

Q.12 नीचे दिए गए विकल्पों में से उपरोक्त गद्यांश का मुख्य विषय पहचानें ।

Ans

✗ 1. चुनावी आकांक्षा

✗ 2. राजनीतिक जुमला

✓ 3. भारत की उन्नति की चिंता

✗ 4. झूठी प्रशंसा

Question ID : **441009438462**
Option 1 ID : **4410091712759**
Option 2 ID : **4410091712760**
Option 3 ID : **4410091712761**
Option 4 ID : **4410091712758**

Comprehension:

नीचे दिए गए गद्यांश को पढ़कर निम्नलिखित पाँच प्रश्नों के उत्तर दिए गए विकल्पों में से चुनें।

आज बड़े ही आनंद का दिन है कि इस छोटे से नगर बलिया में हम इतने मनुष्यों को बड़े उत्साह से एक स्थान पर देखते हैं। इस अभागे आलसी देश में जो कुछ हो जाए वही बहुत कुछ है। बनारस ऐसे-ऐसे बड़े नगरों में जब कुछ नहीं होता तो यह हम क्यों न कहेंगे कि बलिया में जो कुछ हमने देखा, वह बहुत ही प्रशंसा के योग्य है। इस उत्साह का मूल कारण जो हमने खोजा, तो प्रगट हो गया कि इस देश के भाग्य से आजकल यहाँ सारा समाज ही ऐसा एकत्र है। जहाँ रॉबर्ट साहब बहादुर जैसे कलेक्टर हों, वहाँ क्यों न ऐसा समाज हो। जिस देश और काल में ईश्वर ने अकबर को उत्पन्न किया था, उसी में अबुल फजल, बीरबल, टोडरमल को भी उत्पन्न किया। यहाँ रॉबर्ट साहब अकबर हैं, तो मुंशी चतुर्भुज सहाय, मुंशी बिहारीलाल साहब आदि अबुल फजल और टोडरमल हैं। हमारे हिंदुस्तानी लोग तो रेल की गाड़ी हैं। यद्यपि फर्स्ट क्लास, सेकेंड क्लास आदि गाड़ी बहुत अच्छी-अच्छी और बड़े-बड़े महसूल की इस ट्रेन में लगी हैं पर बिना इंजिन ये सब नहीं चल सकतीं, वैसे ही हिंदुस्तानी लोगों को कोई चलानेवाला हो, तो ये क्या नहीं कर सकते।

SubQuestion No : 13

Q.13 नीचे दिए गए विकल्पों में से उपरोक्त गद्यांश के तथ्य पहचानें।

Ans

✗ 1. गद्यांश में तथ्य यह है कि अंग्रेजों के समय हिंदुस्तान एक विकसित राष्ट्र था तथा यहाँ कोई भेदभाव नहीं था।

✓ 2. गद्यांश में तथ्य यह है कि हिंदुस्तानी लोगों को कोई चलानेवाला हो, तो ये क्या नहीं कर सकते।

✗ 3. गद्यांश में तथ्य यह है कि हिन्दुस्तानी आगे बढ़कर सबकुछ खुद ही कर लेते हैं।

✗ 4. गद्यांश में तथ्य यह है कि हिन्दुस्तानी किसी कि नहीं सुनते।

Question ID : **441009438463**
Option 1 ID : **4410091712765**
Option 2 ID : **4410091712762**
Option 3 ID : **4410091712764**
Option 4 ID : **4410091712763**

Comprehension:

नीचे दिए गए गद्यांश को पढ़कर निम्नलिखित पाँच प्रश्नों के उत्तर दिए गए विकल्पों में से चुनें।

आज बड़े ही आनंद का दिन है कि इस छोटे से नगर बलिया में हम इतने मनुष्यों को बड़े उत्साह से एक स्थान पर देखते हैं। इस अभागे आलसी देश में जो कुछ हो जाए वही बहुत कुछ है। बनारस ऐसे-ऐसे बड़े नगरों में जब कुछ नहीं होता तो यह हम क्यों न कहेंगे कि बलिया में जो कुछ हमने देखा, वह बहुत ही प्रशंसा के योग्य है। इस उत्साह का मूल कारण जो हमने खोजा, तो प्रगट हो गया कि इस देश के भाग्य से आजकल यहाँ सारा समाज ही ऐसा एकत्र है। जहाँ रॉबर्ट साहब बहादुर जैसे कलेक्टर हों, वहाँ क्यों न ऐसा समाज हो। जिस देश और काल में ईश्वर ने अकबर को उत्पन्न किया था, उसी में अबुल फजल, बीरबल, टोडरमल को भी उत्पन्न किया। यहाँ रॉबर्ट साहब अकबर हैं, तो मुंशी चतुर्भुज सहाय, मुंशी बिहारीलाल साहब आदि अबुल फजल और टोडरमल हैं। हमारे हिंदुस्तानी लोग तो रेल की गाड़ी हैं। यद्यपि फर्स्ट क्लास, सेकेंड क्लास आदि गाड़ी बहुत अच्छी-अच्छी और बड़े-बड़े महसूल की इस ट्रेन में लगी हैं पर बिना इंजिन ये सब नहीं चल सकतीं, वैसे ही हिंदुस्तानी लोगों को कोई चलानेवाला हो, तो ये क्या नहीं कर सकते।

SubQuestion No : 14

Q.14 नीचे दिए गए विकल्पों में से आलसी का विलोम शब्द चुनें।

Ans

✗ 1. जीवंत

✗ 2. तेज

✗ 3. बहुमुखी

✓ 4. परिश्रमी

Question ID : **441009438464**
Option 1 ID : **4410091712769**
Option 2 ID : **4410091712767**
Option 3 ID : **4410091712768**
Option 4 ID : **4410091712766**

Comprehension:

नीचे दिए गए गद्यांश को पढ़कर निम्नलिखित पाँच प्रश्नों के उत्तर दिए गए विकल्पों में से चुनें।

आज बड़े ही आनंद का दिन है कि इस छोटे से नगर बलिया में हम इतने मनुष्यों को बड़े उत्साह से एक स्थान पर देखते हैं। इस अभागे आलसी देश में जो कुछ हो जाए वही बहुत कुछ है। बनारस ऐसे-ऐसे बड़े नगरों में जब कुछ नहीं होता तो यह हम क्यों न कहेंगे कि बलिया में जो कुछ हमने देखा, वह बहुत ही प्रशंसा के योग्य है। इस उत्साह का मूल कारण जो हमने खोजा, तो प्रगट हो गया कि इस देश के भाग्य से आजकल यहाँ सारा समाज ही ऐसा एकत्र है। जहाँ रॉबर्ट साहब बहादुर जैसे कलेक्टर हों, वहाँ क्यों न ऐसा समाज हो। जिस देश और काल में ईश्वर ने अकबर को उत्पन्न किया था, उसी में अबुल फजल, बीरबल, टोडरमल को भी उत्पन्न किया। यहाँ रॉबर्ट साहब अकबर हैं, तो मुंशी चतुर्भुज सहाय, मुंशी बिहारीलाल साहब आदि अबुल फजल और टोडरमल हैं। हमारे हिंदुस्तानी लोग तो रेल की गाड़ी हैं। यद्यपि फर्स्ट क्लास, सेकेंड क्लास आदि गाड़ी बहुत अच्छी-अच्छी और बड़े-बड़े महसूल की इस ट्रेन में लगी हैं पर बिना इंजिन ये सब नहीं चल सकतीं, वैसे ही हिंदुस्तानी लोगों को कोई चलानेवाला हो, तो ये क्या नहीं कर सकते।

SubQuestion No : 15

Q.15 नीचे दिए गए विकल्पों में से एकत्र का शब्दार्थ चुनें।

Ans

✗ 1. जरुरतमन्द

✗ 2. विदेह

✗ 3. विचित्र

✓ 4. इकट्ठा

Question ID : **441009438465**
Option 1 ID : **4410091712773**
Option 2 ID : **4410091712771**
Option 3 ID : **4410091712770**
Option 4 ID : **4410091712772**

Comprehension:

निम्नलिखित गद्यांश को पढ़ें और इसके बाद प्रश्नों के उत्तर दें।

वैदिक युग में यज्ञ अथवा कर्मकाण्ड के माध्यम से धर्मानुष्ठान हुआ करते थे। आगे लोग प्राय: प्राकृतिक वस्तुओं अथवा घटनाओं के मूल में किसी देवता की कल्पना कर लेते थे और उसे प्रसन्न रखने के लिए यज्ञादि का आयोजन करते थे। विनय अथवा प्रार्थना भी उनके दैनिक जीवन की उल्लासमयी अभिव्यक्ति थी। उनका ध्यान मुख्यत: ऐहिक सुखों की प्राप्ति पर केंद्रित था और वह अंत:करण की साधना की अपेक्षा बाह्य विधानों का अनुसरण करने की ओर अधिक प्रवृत्त रहते थे। फिर भी, शुभाशुभ परिणामों में उनका विश्वास था, जिस कारण उनके यज्ञादि कर्मकाण्ड श्रद्धा से अनुप्राणित रहते थे। श्रद्धाविहीन यज्ञ का कोई अर्थ न था। इसी से श्रद्धा-मूलक भक्ति का प्रादुर्भाव हुआ और आगे चलकर बहुदेववाद भी एकदेववाद में परिणत हो चला। भक्त के लिए यह स्वाभाविक हो गया कि यह बिखरी हुई शक्तियों में सामंजस्य लाकर अपनी दृष्टि किसी एक में निविष्ट करे। फलस्वरूप बहुदेवों की कल्पना सिमट कर धीरे-धीरे एक में ही समाहित होने लगी और कहा जाने लगा विद्वान लोग उसी (सत्) को इंद्र, मित्र, वरूण या अग्नि के नाम से पुकारते हैं। इस प्रकार सार्वभौमिक मौलिक एकता के प्रतिपादन द्वारा परमात्म-तत्त्व की प्रतिष्ठा हो गयी।

SubQuestion No : 16

Q.16 वैदिक काल में यज्ञादि का आयोजन करने का उद्देश्य होता था-

Ans

✗ 1. जीवन को उल्लासमयी बनाने हेतु

✗ 2. प्राकृतिक घटनाओं से संरक्षण हेतु

✓ 3. कल्पित देवताओं को प्रसन्न करने हेतु

✗ 4. कर्मकाण्ड करने हेतु

Question ID : **441009438378**
Option 1 ID : **4410091712484**
Option 2 ID : **4410091712485**
Option 3 ID : **4410091712482**
Option 4 ID : **4410091712483**

Comprehension:

निम्नलिखित गद्यांश को पढ़ें और इसके बाद प्रश्नों के उत्तर दें।

वैदिक युग में यज्ञ अथवा कर्मकाण्ड के माध्यम से धर्मानुष्ठान हुआ करते थे। आगे लोग प्राय: प्राकृतिक वस्तुओं अथवा घटनाओं के मूल में किसी देवता की कल्पना कर लेते थे और उसे प्रसन्न रखने के लिए यज्ञादि का आयोजन करते थे। विनय अथवा प्रार्थना भी उनके दैनिक जीवन की उल्लासमयी अभिव्यक्ति थी। उनका ध्यान मुख्यत: ऐहिक सुखों की प्राप्ति पर केंद्रित था और वह अंत:करण की साधना की अपेक्षा बाह्य विधानों का अनुसरण करने की ओर अधिक प्रवृत्त रहते थे। फिर भी, शुभाशुभ परिणामों में उनका विश्वास था, जिस कारण उनके यज्ञादि कर्मकाण्ड श्रद्धा से अनुप्राणित रहते थे। श्रद्धाविहीन यज्ञ का कोई अर्थ न था। इसी से श्रद्धा-मूलक भक्ति का प्रादुर्भाव हुआ और आगे चलकर बहुदेववाद भी एकदेववाद में परिणत हो चला। भक्त के लिए यह स्वाभाविक हो गया कि यह बिखरी हुई शक्तियों में सामंजस्य लाकर अपनी दृष्टि किसी एक में निविष्ट करे। फलस्वरूप बहुदेवों की कल्पना सिमट कर धीरे-धीरे एक में ही समाहित होने लगी और कहा जाने लगा विद्वान लोग उसी (सत्) को इंद्र, मित्र, वरूण या अग्नि के नाम से पुकारते हैं। इस प्रकार सार्वभौमिक मौलिक एकता के प्रतिपादन द्वारा परमात्म-तत्त्व की प्रतिष्ठा हो गयी।

SubQuestion No : 17

Q.17 याज्ञिक कर्मकाण्डों के लिए आवश्यक था-

Ans

✗ 1. प्रेम भाव

✗ 2. दास्य भाव

✓ 3. श्रद्धा भाव

✗ 4. दया भाव

Question ID : **441009438379**
Option 1 ID : **4410091712486**
Option 2 ID : **4410091712489**
Option 3 ID : **4410091712488**
Option 4 ID : **4410091712487**

Comprehension:

निम्नलिखित गद्यांश को पढ़ें और इसके बाद प्रश्नों के उत्तर दें।

वैदिक युग में यज्ञ अथवा कर्मकाण्ड के माध्यम से धर्मानुष्ठान हुआ करते थे। आगे लोग प्राय: प्राकृतिक वस्तुओं अथवा घटनाओं के मूल में किसी देवता की कल्पना कर लेते थे और उसे प्रसन्न रखने के लिए यज्ञादि का आयोजन करते थे। विनय अथवा प्रार्थना भी उनके दैनिक जीवन की उल्लासमयी अभिव्यक्ति थी। उनका ध्यान मुख्यत: ऐहिक सुखों की प्राप्ति पर केंद्रित था और वह अंत:करण की साधना की अपेक्षा बाह्य विधानों का अनुसरण करने की ओर अधिक प्रवृत्त रहते थे। फिर भी, शुभाशुभ परिणामों में उनका विश्वास था, जिस कारण उनके यज्ञादि कर्मकाण्ड श्रद्धा से अनुप्राणित रहते थे। श्रद्धाविहीन यज्ञ का कोई अर्थ न था। इसी से श्रद्धा-मूलक भक्ति का प्रादुर्भाव हुआ और आगे चलकर बहुदेववाद भी एकदेववाद में परिणत हो चला। भक्त के लिए यह स्वाभाविक हो गया कि यह बिखरी हुई शक्तियों में सामंजस्य लाकर अपनी दृष्टि किसी एक में निविष्ट करे। फलस्वरूप बहुदेवों की कल्पना सिमट कर धीरे-धीरे एक में ही समाहित होने लगी और कहा जाने लगा विद्वान लोग उसी (सत्) को इंद्र, मित्र, वरूण या अग्नि के नाम से पुकारते हैं। इस प्रकार सार्वभौमिक मौलिक एकता के प्रतिपादन द्वारा परमात्म-तत्त्व की प्रतिष्ठा हो गयी।

SubQuestion No : 18

Q.18 सामंजस्य का विलोम शब्द निम्न में से है---

Ans

✓ 1. असामंजस्य

✗ 2. बिखराव

✗ 3. अवसामंजस्य

✗ 4. आसामंजस्य

Question ID : **441009438380**
Option 1 ID : **4410091712492**
Option 2 ID : **4410091712490**
Option 3 ID : **4410091712493**
Option 4 ID : **4410091712491**

Comprehension:

निम्नलिखित गद्यांश को पढ़ें और इसके बाद प्रश्नों के उत्तर दें।

वैदिक युग में यज्ञ अथवा कर्मकाण्ड के माध्यम से धर्मानुष्ठान हुआ करते थे। आगे लोग प्राय: प्राकृतिक वस्तुओं अथवा घटनाओं के मूल में किसी देवता की कल्पना कर लेते थे और उसे प्रसन्न रखने के लिए यज्ञादि का आयोजन करते थे। विनय अथवा प्रार्थना भी उनके दैनिक जीवन की उल्लासमयी अभिव्यक्ति थी। उनका ध्यान मुख्यत: ऐहिक सुखों की प्राप्ति पर केंद्रित था और वह अंत:करण की साधना की अपेक्षा बाह्य विधानों का अनुसरण करने की ओर अधिक प्रवृत्त रहते थे। फिर भी, शुभाशुभ परिणामों में उनका विश्वास था, जिस कारण उनके यज्ञादि कर्मकाण्ड श्रद्धा से अनुप्राणित रहते थे। श्रद्धाविहीन यज्ञ का कोई अर्थ न था। इसी से श्रद्धा-मूलक भक्ति का प्रादुर्भाव हुआ और आगे चलकर बहुदेववाद भी एकदेववाद में परिणत हो चला। भक्त के लिए यह स्वाभाविक हो गया कि यह बिखरी हुई शक्तियों में सामंजस्य लाकर अपनी दृष्टि किसी एक में निविष्ट करे। फलस्वरूप बहुदेवों की कल्पना सिमट कर धीरे-धीरे एक में ही समाहित होने लगी और कहा जाने लगा विद्वान लोग उसी (सत्) को इंद्र, मित्र, वरूण या अग्नि के नाम से पुकारते हैं। इस प्रकार सार्वभौमिक मौलिक एकता के प्रतिपादन द्वारा परमात्म-तत्त्व की प्रतिष्ठा हो गयी।

SubQuestion No : 19

Q.19 वैदिक युगीन लोगों की प्रार्थना आदि का लक्ष्य था-

Ans

✔ 1. ऐहिक सुखों की प्राप्ति

✘ 2. ईश्वर से निकट हो पाने के सुख की प्राप्ति

✘ 3. दैहिक सुखों की प्राप्ति

✘ 4. पारलौकिक सुखों की प्राप्ति

Question ID : **441009438381**
Option 1 ID : **4410091712495**
Option 2 ID : **4410091712497**
Option 3 ID : **4410091712496**
Option 4 ID : **4410091712494**

Comprehension:

निम्नलिखित गद्यांश को पढ़ें और इसके बाद प्रश्नों के उत्तर दें।

वैदिक युग में यज्ञ अथवा कर्मकाण्ड के माध्यम से धर्मानुष्ठान हुआ करते थे। आगे लोग प्राय: प्राकृतिक वस्तुओं अथवा घटनाओं के मूल में किसी देवता की कल्पना कर लेते थे और उसे प्रसन्न रखने के लिए यज्ञादि का आयोजन करते थे। विनय अथवा प्रार्थना भी उनके दैनिक जीवन की उल्लासमयी अभिव्यक्ति थी। उनका ध्यान मुख्यत: ऐहिक सुखों की प्राप्ति पर केंद्रित था और वह अंत:करण की साधना की अपेक्षा बाह्य विधानों का अनुसरण करने की ओर अधिक प्रवृत्त रहते थे। फिर भी, शुभाशुभ परिणामों में उनका विश्वास था, जिस कारण उनके यज्ञादि कर्मकाण्ड श्रद्धा से अनुप्राणित रहते थे। श्रद्धाविहीन यज्ञ का कोई अर्थ न था। इसी से श्रद्धा-मूलक भक्ति का प्रादुर्भाव हुआ और आगे चलकर बहुदेववाद भी एकदेववाद में परिणत हो चला। भक्त के लिए यह स्वाभाविक हो गया कि यह बिखरी हुई शक्तियों में सामंजस्य लाकर अपनी दृष्टि किसी एक में निविष्ट करे। फलस्वरूप बहुदेवों की कल्पना सिमट कर धीरे-धीरे एक में ही समाहित होने लगी और कहा जाने लगा विद्वान लोग उसी (सत्) को इंद्र, मित्र, वरूण या अग्नि के नाम से पुकारते हैं। इस प्रकार सार्वभौमिक मौलिक एकता के प्रतिपादन द्वारा परमात्म-तत्त्व की प्रतिष्ठा हो गयी।

SubQuestion No : 20

Q.20 वैदिक युगीन धर्म के संदर्भ में असत्य है-

Ans

✔ 1. उन्हें यज्ञों के शुभाशुभ परिणामों में विश्वास नहीं था।

✘ 2. इंद्र, मित्र,वरूण एवं अग्नि मुख्य देवता थे।

✘ 3. धर्मानुष्ठान यज्ञ के माध्यम से हुआ करते थे।

✘ 4. प्रार्थना उनके दैनिक जीवन की उल्लासमयी अभिव्यक्ति थी।

Question ID : **441009438382**
Option 1 ID : **4410091712501**
Option 2 ID : **4410091712499**
Option 3 ID : **4410091712498**
Option 4 ID : **4410091712500**

Section : **Test of English Language and Comprehension**

Q.1 **Choose the correct form of indirect speech for the following sentence from the options.**

"I will join the team meeting tomorrow and share my progress updates," he said.

Ans

✗ 1. He said that he must join the team meeting tomorrow and share his progress updates.

✓ 2. He said that he would join the team meeting tomorrow and share his progress updates.

✗ 3. He said that he can join the team meeting tomorrow and share his progress updates.

✗ 4. He said that he could join the team meeting tomorrow and share his progress updates.

Question ID : **4410091516606**
Option 1 ID : **4410095989828**
Option 2 ID : **4410095989827**
Option 3 ID : **4410095989826**
Option 4 ID : **4410095989825**

Q.2 **Complete the following sentence by choosing the correct option.**
He chose ___ best seat in ___ hall, and nobody questioned his choice today.

Ans

✗ 1. a, a

✓ 2. the, the

✗ 3. a, the

✗ 4. the, a

Question ID : **4410091516296**
Option 1 ID : **4410095988580**
Option 2 ID : **4410095988577**
Option 3 ID : **4410095988578**
Option 4 ID : **4410095988579**

Quick Sarkari

Q.3 **Read the given sentence carefully and convert it into passive voice.**

The senior maintenance technician had meticulously repaired the severely malfunctioning air-conditioning unit before the weary residents returned to the high-rise apartment after their prolonged outing.

Ans ✗ 1. The severely malfunctioning air-conditioning unit was meticulously repaired by the senior maintenance technician before the weary residents returned to the high-rise apartment after their prolonged outing.

✓ 2. The severely malfunctioning air-conditioning unit had been meticulously repaired by the senior maintenance technician before the weary residents returned to the high-rise apartment after their prolonged outing.

✗ 3. The severely malfunctioning air-conditioning unit is meticulously repaired by the senior maintenance technician before the weary residents returned to the high-rise apartment after their prolonged outing.

✗ 4. The severely malfunctioning air-conditioning unit has been meticulously repaired by the senior maintenance technician before the weary residents returned to the high-rise apartment after their prolonged outing.

Question ID : **4410091541027**
Option 1 ID : **4410096087340**
Option 2 ID : **4410096087341**
Option 3 ID : **4410096087342**
Option 4 ID : **4410096087339**

Q.4 **Select the option that expresses the given sentence in the correct past tense form.**
She completes her daily workout and feels proud of her consistent dedication and progress.

Ans ✓ 1. She completed her daily workout and felt proud of her consistent dedication and progress.

✗ 2. She can complete her daily workout and feels proud of her consistent dedication and progress.

✗ 3. She has completed her daily workout and felt proud of her consistent dedication and progress.

✗ 4. She will complete her daily workout and feels proud of her consistent dedication and progress.

Question ID : **4410091516512**
Option 1 ID : **4410095989458**
Option 2 ID : **4410095989459**
Option 3 ID : **4410095989460**
Option 4 ID : **4410095989457**

QuickSarkari.com | WhatsApp Channel | Telegram: t.me/quick_sarkari

Q.5 Choose the most suitable one-word substitute for the underlined words in the sentence.

The people performing with their confident style and charming smiles made the event truly captivating.

Ans
✗ 1. articulate performers
✓ 2. debonair performers
✗ 3. austere performers
✗ 4. boorish performers

Question ID : **4410091510314**
Option 1 ID : **4410095965772**
Option 2 ID : **4410095965775**
Option 3 ID : **4410095965774**
Option 4 ID : **4410095965773**

Q.6 A sentence, divided into segments is given. The first and last segments (1 and 6) are fixed and have been highlighted. The segments A, B, C and D are jumbled up. Select the option which represents the most logical and meaningful order.

1. It is obvious that
(A) a complex interplay of
(B) factors, both mental and physical,
(C) rather than any single element must
(D) and not just physical health,
6. determine our overall well-being.

Ans
✗ 1. B A C D
✗ 2. D C A B
✓ 3. A B D C
✗ 4. A C D B

Question ID : **4410091650879**
Option 1 ID : **4410096519628**
Option 2 ID : **4410096519629**
Option 3 ID : **4410096519627**
Option 4 ID : **4410096519626**

Q.7 Complete the following sentence with the most appropriate option.
The artist described the inspiration behind the painting ....., captivating everyone with the depth of emotion.

Ans
✓ 1. passionately
✗ 2. mechanically
✗ 3. formally
✗ 4. indifferently

Question ID : **4410091456540**
Option 1 ID : **4410095754493**
Option 2 ID : **4410095754492**
Option 3 ID : **4410095754490**
Option 4 ID : **4410095754491**

QuickSarkari.com | WhatsApp Channel | Telegram: t.me/quick_sarkari

Q.8 The parts of a sentence are given below. While the first part (S) is fixed and correctly placed, the remaining segments are jumbled. Rearrange them to form a clear, meaningful, and grammatically correct sentence.

S. Interdisciplinary research expands
A. enriching understanding and fostering innovation rooted in
B. values from multiple disciplines, thereby
C. holistic rather than reductionist thinking
D. intellectual horizons by integrating methods, perspectives, and

Ans
✗ 1. CADB
✓ 2. DBAC
✗ 3. BACD
✗ 4. ACDB

Question ID : **4410091425009**
Option 1 ID : **4410095628667**
Option 2 ID : **4410095628668**
Option 3 ID : **4410095628670**
Option 4 ID : **4410095628669**

Q.9 In formal academic or public settings, when an individual delivers the very first ceremonial address of their life, marking their debut as a speaker before an audience, which expression most accurately denotes this inaugural oration?

Ans
✗ 1. Preamble address
✗ 2. Preliminary discourse
✗ 3. Introductory allocution
✓ 4. Maiden speech

Question ID : **4410091567608**
Option 1 ID : **4410096191735**
Option 2 ID : **4410096191732**
Option 3 ID : **4410096191733**
Option 4 ID : **4410096191734**

Q.10 In the given question, a statement divided into different segments is given. Rearrange all the segments to form a coherent statement.

the picturesque countryside(P)/ reflecting the azure sky above (Q)/ the meandering river (R)/ flowed lazily through (S)/

Ans
✗ 1. QRSP
✗ 2. RPSQ
✗ 3. PQRS
✓ 4. RSPQ

Question ID : **441009430930**
Option 1 ID : **4410091683240**
Option 2 ID : **4410091683241**
Option 3 ID : **4410091683239**
Option 4 ID : **4410091683238**

QuickSarkari.com | WhatsApp Channel | Telegram: t.me/quick_sarkari

Q.11 **Select the correct one-word substitution for a person who speaks excessively, often dominating conversations with unnecessary detail and prolonged commentary, regardless of whether others are interested or not.**

Ans
✔ 1. Loquacious
✘ 2. Circumspect
✘ 3. Taciturn
✘ 4. Reticent

Question ID : **4410091527866**
Option 1 ID : **4410096034664**
Option 2 ID : **4410096034665**
Option 3 ID : **4410096034666**
Option 4 ID : **4410096034663**

Q.12 **Out of the four alternatives, choose the one that can be used as a substitute for the bracketed word segment.**
The university launched a new course in (the scientific study of fossils and ancient life-forms) which attracted students keen on exploring Earth's pre-historic past.

Ans
✔ 1. palaeontology
✘ 2. mineralogy
✘ 3. archaeology
✘ 4. entomology

Question ID : **4410091456813**
Option 1 ID : **4410095755560**
Option 2 ID : **4410095755558**
Option 3 ID : **4410095755561**
Option 4 ID : **4410095755559**

Q.13 **Choose the correct form of passive voice for the following sentence from the options.**

The attorneys carefully scrutinized the intricate legal contract before final approval yesterday.

Ans
✘ 1. The intricate legal contract has been carefully scrutinized by the attorneys before final approval yesterday.
✘ 2. The intricate legal contract had carefully scrutinized by the attorneys before final approval yesterday.
✘ 3. The intricate legal contract had been carefully scrutinized by the attorneys before final approval yesterday.
✔ 4. The intricate legal contract was carefully scrutinized by the attorneys before final approval yesterday.

Question ID : **4410091516682**
Option 1 ID : **4410095990126**
Option 2 ID : **4410095990125**
Option 3 ID : **4410095990127**
Option 4 ID : **4410095990128**

QuickSarkari.com | WhatsApp Channel | Telegram: t.me/quick_sarkari

Q.14 **Identify the correct form of direct speech of the following sentence.**

My friend said that he had been asked to complete the task by the next day.

Ans
✗ 1. My friend said, "He had been asked to complete the task by tomorrow."
✗ 2. My friend said, "I have been asking to complete the task tomorrow."
✓ 3. My friend said, "I was asked to complete the task by tomorrow."
✗ 4. My friend says, "I have been asked to complete the task by tomorrow."

Question ID : **4410091511613**
Option 1 ID : **4410095970525**
Option 2 ID : **4410095970527**
Option 3 ID : **4410095970528**
Option 4 ID : **4410095970526**

Q.15 **Choose the correct form of the future tense to complete the sentence.**

By 2035, many coastal cities in India _____ significant infrastructural changes to adapt to rising sea levels and extreme weather conditions caused by climate change.

Ans
✗ 1. will be implementing
✓ 2. will have implemented
✗ 3. will implement
✗ 4. have implemented

Question ID : **4410091501777**
Option 1 ID : **4410095931514**
Option 2 ID : **4410095931513**
Option 3 ID : **4410095931512**
Option 4 ID : **4410095931515**

Q.16 **Complete the following sentence by choosing the correct option.**
The professor spoke_____, ensuring each student grasped the underlying principles clearly today.

Ans
✗ 1. reticently
✗ 2. technically
✓ 3. didactically
✗ 4. astoundingly

Question ID : **4410091516384**
Option 1 ID : **4410095988947**
Option 2 ID : **4410095988948**
Option 3 ID : **4410095988946**
Option 4 ID : **4410095988945**

QuickSarkari.com | WhatsApp Channel | Telegram: t.me/quick_sarkari

Q.17 Complete the given sentence by choosing the correct option.
The manager promised that he would ..... the issue before the next meeting.

Ans
✗ 1. resolves
✓ 2. resolve
✗ 3. resolving
✗ 4. resolved

Question ID : **4410091456620**
Option 1 ID : **4410095754800**
Option 2 ID : **4410095754801**
Option 3 ID : **4410095754799**
Option 4 ID : **4410095754798**

Q.18 Fill in the blanks by choosing the option that best completes the sentence.

Although all major financial decisions are ordinarily taken by the chairman, in this exceptional circumstance, it is ___ president who has been granted the authority to issue ___ final directive after reviewing the committee's comprehensive recommendations.

Ans
✗ 1. the , a
✗ 2. a , the
✗ 3. a , a
✓ 4. the , the

Question ID : **4410091528980**
Option 1 ID : **4410096039047**
Option 2 ID : **4410096039048**
Option 3 ID : **4410096039050**
Option 4 ID : **4410096039049**

Q.19 Complete the following sentence by choosing the correct option.
She _____ explained the complex proposal, ensuring every detail was clearly understood.

Ans
✗ 1. chronologically
✓ 2. meticulously
✗ 3. briefly
✗ 4. caustically

Question ID : **4410091516365**
Option 1 ID : **4410095988863**
Option 2 ID : **4410095988861**
Option 3 ID : **4410095988864**
Option 4 ID : **4410095988862**

QuickSarkari.com | WhatsApp Channel | Telegram: t.me/quick_sarkari

Q.20 The question below consists of a set of labeled phrases. Out of the four options given, select the most logical order to form a coherent sentence.
P: and threaten biodiversity on a global scale
Q: the conservation of endangered species is not just a moral obligation
R: of even a single species can disrupt entire ecosystems
S: but an ecological necessity, since the extinction

Ans
✗ 1. PRQS
✓ 2. QSRP
✗ 3. SRQP
✗ 4. RPSQ

Question ID : **4410091450128**
Option 1 ID : **4410095729021**
Option 2 ID : **4410095729020**
Option 3 ID : **4410095729022**
Option 4 ID : **4410095729023**

Section : **Test of English Language and Comprehension1**

Q.1 Identify the correct antonym of the underlined word.

The young girl became peevish over every little thing she wanted but did not get.

Ans
✗ 1. petulant
✗ 2. fretful
✗ 3. ambitious
✓ 4. serene

Question ID : **4410091513022**
Option 1 ID : **4410095976120**
Option 2 ID : **4410095976119**
Option 3 ID : **4410095976121**
Option 4 ID : **4410095976118**

Q.2 Choose the correct antonym for the underlined word from the options.
Her speech disorder was an impediment to clear communication during professional presentations.

Ans
✗ 1. Hyperbole
✗ 2. Hindrance
✗ 3. Imprudence
✓ 4. Incentive

Question ID : **4410091516814**
Option 1 ID : **4410095990654**
Option 2 ID : **4410095990653**
Option 3 ID : **4410095990656**
Option 4 ID : **4410095990655**

QuickSarkari.com | WhatsApp Channel | Telegram: t.me/quick_sarkari

Q.3 **Substitute the correct idiom for the underlined word segment by choosing from the following options.**
The competing company ran their new advertisement a day early, hoping <u>to take the attention.</u>

Ans
✗ 1. to have an axe to grind
✗ 2. to put a sock in it
✓ 3. to steal our thunder
✗ 4. to hold a candle to us

Question ID : **4410091516926**
Option 1 ID : **4410095991096**
Option 2 ID : **4410095991093**
Option 3 ID : **4410095991094**
Option 4 ID : **4410095991095**

Q.4 **Substitute the correct proverb for the underlined word segment by choosing from the following options.**
Don't get discouraged by your early failures in coding; just remember that <u>regular repetition of an activity is the way to become skilled at it.</u>

Ans
✗ 1. a stitch in time saves nine
✓ 2. practice makes perfect
✗ 3. every cloud has a silver lining
✗ 4. don't put all your eggs in one basket

Question ID : **4410091516950**
Option 1 ID : **4410095991192**
Option 2 ID : **4410095991191**
Option 3 ID : **4410095991190**
Option 4 ID : **4410095991189**

Q.5 **Identify the incorrect spelling and choose the right option to rectify the sentence.**

The craze for the movie turned tumultous when we saw the chaotic crowd, with shoving, fervent fans and frantic security struggling to control the scene.

Ans
✗ 1. fervant
✗ 2. choatic
✗ 3. frentic
✓ 4. tumultuous

Question ID : **4410091513000**
Option 1 ID : **4410095976030**
Option 2 ID : **4410095976033**
Option 3 ID : **4410095976032**
Option 4 ID : **4410095976031**

QuickSarkari.com | WhatsApp Channel | Telegram: t.me/quick_sarkari

Q.6 **Substitute the correct idiom for the underlined word segment by choosing from the following options.**

It took the new hire a few weeks, but now he finally <u>understands the details</u> of the accounting software.

Ans
- ✔ 1. knows the ropes
- ✘ 2. pays through the nose
- ✘ 3. kicks the bucket
- ✘ 4. buys a lemon

Question ID : **4410091516917**
Option 1 ID : **4410095991058**
Option 2 ID : **4410095991060**
Option 3 ID : **4410095991059**
Option 4 ID : **4410095991057**

Q.7 **Identify the correct antonym of the underlined word.**

Certain groups formed a <u>coalition</u> in the city to tackle the rising thefts in various areas.

Ans
- ✘ 1. hegemony
- ✔ 2. dissension
- ✘ 3. prudence
- ✘ 4. obsession

Question ID : **4410091513037**
Option 1 ID : **4410095976178**
Option 2 ID : **4410095976179**
Option 3 ID : **4410095976180**
Option 4 ID : **4410095976181**

Q.8 **Substitute the correct idiom for the underlined word segment by choosing from the following options.**

I tried to keep the engagement a secret until Christmas, but my excited fiancé <u>accidentally revealed the secret</u> during a phone call.

Ans
- ✘ 1. missed the boat
- ✘ 2. went the extra mile
- ✘ 3. spoke of the devil
- ✔ 4. let the cat out of the bag

Question ID : **4410091516900**
Option 1 ID : **4410095990991**
Option 2 ID : **4410095990992**
Option 3 ID : **4410095990990**
Option 4 ID : **4410095990989**

QuickSarkari.com | WhatsApp Channel | Telegram: t.me/quick_sarkari

Q.9 **Identify the spelling error in the given sentence and select the option that rectifies it.**

The astute researcher scrutinized the enigmetic data set and formulated a compelling hypothesis supported by evidence.

Ans
1. hypothisis
2. scrutenized
3. astut
4. enigmatic

Question ID : **4410091516786**
Option 1 ID : **4410095990544**
Option 2 ID : **4410095990542**
Option 3 ID : **4410095990541**
Option 4 ID : **4410095990543**

Q.10 **Choose the correct antonym for the underlined word from the options.**
The editor removed all extraneous details from the report to improve clarity and focus.

Ans
1. Hackneyed
2. Glib
3. Intrinsic
4. Garrulous

Question ID : **4410091516801**
Option 1 ID : **4410095990603**
Option 2 ID : **4410095990604**
Option 3 ID : **4410095990602**
Option 4 ID : **4410095990601**

QuickSarkari.com | WhatsApp Channel | Telegram: t.me/quick_sarkari

Comprehension:

Read the passage carefully and answer the questions that are given below.
The Environment Protection Act, 1986, is one of India's most comprehensive and pivotal pieces of environmental legislation. Enacted in the aftermath of the Bhopal Gas Tragedy, it seeks to safeguard and improve the quality of the environment while preventing and controlling pollution. The Act empowers the Central Government to take all necessary measures for environmental protection, including setting standards for emissions and discharges, regulating industrial operations, and restricting activities in ecologically sensitive regions.

The enactment of this law was influenced by India's commitment at the 1972 Stockholm Conference on the Human Environment and was passed under Article 253 of the Constitution, which allows Parliament to implement international agreements. Articles 48A and 51A further underline the duty of both the state and citizens to protect and improve the environment.

Under the Act, the Central Government can establish environmental laboratories, appoint government analysts, and issue directions to close or regulate industries violating prescribed standards. Non-compliance may result in imprisonment of up to five years or a fine of up to one lakh rupees. However, critics note that the act remains highly centralised and lacks sufficient public participation.

Despite these drawbacks, the Act remains a pivotal step toward environmental governance in India, forming the basis for later institutions like the National Green Tribunal that ensure environmental justice and accountability.

SubQuestion No : 11

Q.11 Select an appropriate title for this passage from the given options.

Ans

✔ 1. The Pivotal Role of the Environment Protection Act, 1986

✘ 2. The Inept Role of the Environment Protection Act, 1986

✘ 3. The Flawed Role of the Environment Protection Act, 1968

✘ 4. The Deficient Role of the Environment Protection Act, 1968

Question ID : **4410091448710**
Option 1 ID : **4410095723301**
Option 2 ID : **4410095723303**
Option 3 ID : **4410095723300**
Option 4 ID : **4410095723302**

QuickSarkari

Comprehension:

Read the passage carefully and answer the questions that are given below.
The Environment Protection Act, 1986, is one of India's most comprehensive and pivotal pieces of environmental legislation. Enacted in the aftermath of the Bhopal Gas Tragedy, it seeks to safeguard and improve the quality of the environment while preventing and controlling pollution. The Act empowers the Central Government to take all necessary measures for environmental protection, including setting standards for emissions and discharges, regulating industrial operations, and restricting activities in ecologically sensitive regions.

The enactment of this law was influenced by India's commitment at the 1972 Stockholm Conference on the Human Environment and was passed under Article 253 of the Constitution, which allows Parliament to implement international agreements. Articles 48A and 51A further underline the duty of both the state and citizens to protect and improve the environment.

Under the Act, the Central Government can establish environmental laboratories, appoint government analysts, and issue directions to close or regulate industries violating prescribed standards. Non-compliance may result in imprisonment of up to five years or a fine of up to one lakh rupees. However, critics note that the act remains highly centralised and lacks sufficient public participation.

Despite these drawbacks, the Act remains a pivotal step toward environmental governance in India, forming the basis for later institutions like the National Green Tribunal that ensure environmental justice and accountability.

SubQuestion No : 12

Q.12 What is the main idea of the passage?

Ans

✗ 1. The passage focuses upon the futile role of the Environment Protection Act, 1986, in encouraging unregulated urbanisation.

✗ 2. The passage focuses upon the undermined role of the Environment Protection Act, 1986, in promoting resource exploitation.

✗ 3. The passage focuses upon the deficient role of the Environment Protection Act, 1968, in advancing infrastructure projects.

✓ 4. The passage focuses upon the pivotal role of the Environment Protection Act, 1986, in safeguarding India's environment.

Question ID : **4410091448711**
Option 1 ID : **4410095723304**
Option 2 ID : **4410095723307**
Option 3 ID : **4410095723305**
Option 4 ID : **4410095723306**

QuickSarkari.com | WhatsApp Channel | Telegram: t.me/quick_sarkari

Comprehension:

Read the passage carefully and answer the questions that are given below.
The Environment Protection Act, 1986, is one of India's most comprehensive and pivotal pieces of environmental legislation. Enacted in the aftermath of the Bhopal Gas Tragedy, it seeks to safeguard and improve the quality of the environment while preventing and controlling pollution. The Act empowers the Central Government to take all necessary measures for environmental protection, including setting standards for emissions and discharges, regulating industrial operations, and restricting activities in ecologically sensitive regions.

The enactment of this law was influenced by India's commitment at the 1972 Stockholm Conference on the Human Environment and was passed under Article 253 of the Constitution, which allows Parliament to implement international agreements. Articles 48A and 51A further underline the duty of both the state and citizens to protect and improve the environment.

Under the Act, the Central Government can establish environmental laboratories, appoint government analysts, and issue directions to close or regulate industries violating prescribed standards. Non-compliance may result in imprisonment of up to five years or a fine of up to one lakh rupees. However, critics note that the act remains highly centralised and lacks sufficient public participation.

Despite these drawbacks, the Act remains a pivotal step toward environmental governance in India, forming the basis for later institutions like the National Green Tribunal that ensure environmental justice and accountability.

SubQuestion No : 13

Q.13 Identify the structure of the passage.

Ans

✗ 1. Chronological

✗ 2. Descriptive

✓ 3. Expository

✗ 4. Narrative

Question ID : **4410091448712**
Option 1 ID : **4410095723311**
Option 2 ID : **4410095723310**
Option 3 ID : **4410095723309**
Option 4 ID : **4410095723308**

QuickSarkari.com | WhatsApp Channel | Telegram: t.me/quick_sarkari

Comprehension:

Read the passage carefully and answer the questions that are given below.
The Environment Protection Act, 1986, is one of India's most comprehensive and pivotal pieces of environmental legislation. Enacted in the aftermath of the Bhopal Gas Tragedy, it seeks to safeguard and improve the quality of the environment while preventing and controlling pollution. The Act empowers the Central Government to take all necessary measures for environmental protection, including setting standards for emissions and discharges, regulating industrial operations, and restricting activities in ecologically sensitive regions.

The enactment of this law was influenced by India's commitment at the 1972 Stockholm Conference on the Human Environment and was passed under Article 253 of the Constitution, which allows Parliament to implement international agreements. Articles 48A and 51A further underline the duty of both the state and citizens to protect and improve the environment.

Under the Act, the Central Government can establish environmental laboratories, appoint government analysts, and issue directions to close or regulate industries violating prescribed standards. Non-compliance may result in imprisonment of up to five years or a fine of up to one lakh rupees. However, critics note that the act remains highly centralised and lacks sufficient public participation.

Despite these drawbacks, the Act remains a pivotal step toward environmental governance in India, forming the basis for later institutions like the National Green Tribunal that ensure environmental justice and accountability.

SubQuestion No : 14

Q.14 Identify the tone of the passage.

Ans

✗ 1. Critical and pessimistic

✓ 2. Informative and analytical

✗ 3. Persuasive and motivational

✗ 4. Informative and accusatory

Question ID : **4410091448713**
Option 1 ID : **4410095723312**
Option 2 ID : **4410095723315**
Option 3 ID : **4410095723313**
Option 4 ID : **4410095723314**

QuickSarkari.com | WhatsApp Channel | Telegram: t.me/quick_sarkari

Comprehension:

Read the passage carefully and answer the questions that are given below.
The Environment Protection Act, 1986, is one of India's most comprehensive and pivotal pieces of environmental legislation. Enacted in the aftermath of the Bhopal Gas Tragedy, it seeks to safeguard and improve the quality of the environment while preventing and controlling pollution. The Act empowers the Central Government to take all necessary measures for environmental protection, including setting standards for emissions and discharges, regulating industrial operations, and restricting activities in ecologically sensitive regions.

The enactment of this law was influenced by India's commitment at the 1972 Stockholm Conference on the Human Environment and was passed under Article 253 of the Constitution, which allows Parliament to implement international agreements. Articles 48A and 51A further underline the duty of both the state and citizens to protect and improve the environment.

Under the Act, the Central Government can establish environmental laboratories, appoint government analysts, and issue directions to close or regulate industries violating prescribed standards. Non-compliance may result in imprisonment of up to five years or a fine of up to one lakh rupees. However, critics note that the act remains highly centralised and lacks sufficient public participation.

Despite these drawbacks, the Act remains a pivotal step toward environmental governance in India, forming the basis for later institutions like the National Green Tribunal that ensure environmental justice and accountability.

SubQuestion No : 15

Q.15 **Select the correct antonym of the given word from the passage.**
Trivial

Ans

✔ 1. Pivotal

✘ 2. Comprehensive

✘ 3. Necessary

✘ 4. Sensitive

Question ID : **4410091448714**
Option 1 ID : **4410095723316**
Option 2 ID : **4410095723319**
Option 3 ID : **4410095723317**
Option 4 ID : **4410095723318**

QuickSarkari.com | WhatsApp Channel | Telegram: t.me/quick_sarkari

Comprehension:

Read the passage below and answer the questions that follow.

The field of soft robotics has seen a dramatic leap forward with the development of bio-inspired machines, particularly those mimicking the locomotion of invertebrates. Traditional robotics often relies on rigid components and complex electronic feedback loops, limiting their adaptability in unpredictable environments. However, soft robots, constructed primarily from flexible materials like silicone and hydrogels, are inherently more resilient and capable of navigating complex terrains, such as those found in deep-sea exploration or disaster relief scenarios. One significant innovation is the robotic jellyfish. These devices leverage the fluid dynamics of their natural counterparts—using pneumatic or hydraulic actuation systems to pulse their bell-shaped bodies—which makes them exceptionally energy-efficient for underwater propulsion. Furthermore, their compliant structure minimizes the risk of damage when interacting with delicate marine ecosystems.

The inherent complexity of manufacturing and controlling these materials, however, presents a formidable challenge. The mathematical modelling of soft bodies under external forces is significantly more difficult than for rigid bodies, necessitating advanced computational frameworks. Yet, the benefits often outweigh the hurdles. For instance, future iterations are envisioned to integrate self-healing polymers, allowing the robots to automatically repair minor punctures, thereby extending their operational lifespan dramatically. This shift toward machines that mimic nature's evolutionary success, promoting both agility and robustness, represents a paradigm shift away from purely mechanical design towards true bio-mimicry.

SubQuestion No : 16

Q.16 Identify the suitable title for the passage.

Ans

✗ 1. The Challenge of Modelling Hydrogel Components

✓ 2. Soft Robotics: The Bio-Inspired Shift in Machine Design

✗ 3. Pneumatic Actuation Systems in Underwater Vehicles

✗ 4. The Future of Disaster Relief Technology

Question ID : **4410091501991**
Option 1 ID : **4410095932363**
Option 2 ID : **4410095932361**
Option 3 ID : **4410095932362**
Option 4 ID : **4410095932360**

QuickSarkari.com | WhatsApp Channel | Telegram: t.me/quick_sarkari

Comprehension:

Read the passage below and answer the questions that follow.

The field of soft robotics has seen a dramatic leap forward with the development of bio-inspired machines, particularly those mimicking the locomotion of invertebrates. Traditional robotics often relies on rigid components and complex electronic feedback loops, limiting their adaptability in unpredictable environments. However, soft robots, constructed primarily from flexible materials like silicone and hydrogels, are inherently more resilient and capable of navigating complex terrains, such as those found in deep-sea exploration or disaster relief scenarios. One significant innovation is the robotic jellyfish. These devices leverage the fluid dynamics of their natural counterparts—using pneumatic or hydraulic actuation systems to pulse their bell-shaped bodies—which makes them exceptionally energy-efficient for underwater propulsion. Furthermore, their compliant structure minimizes the risk of damage when interacting with delicate marine ecosystems.

The inherent complexity of manufacturing and controlling these materials, however, presents a formidable challenge. The mathematical modelling of soft bodies under external forces is significantly more difficult than for rigid bodies, necessitating advanced computational frameworks. Yet, the benefits often outweigh the hurdles. For instance, future iterations are envisioned to integrate self-healing polymers, allowing the robots to automatically repair minor punctures, thereby extending their operational lifespan dramatically. This shift toward machines that mimic nature's evolutionary success, promoting both agility and robustness, represents a paradigm shift away from purely mechanical design towards true bio-mimicry.

SubQuestion No : 17

Q.17 Identify the central theme of the passage.

Ans

✗ 1. The mathematical difficulties inherent in modelling non-rigid bodies.

✗ 2. The integration of self-healing polymers into manufacturing processes.

✗ 3. The historical evolution of deep-sea exploration technologies.

✓ 4. The emergence and strategic advantages of bio-inspired soft robots over traditional rigid machines.

Question ID : **4410091501992**
Option 1 ID : **4410095932364**
Option 2 ID : **4410095932367**
Option 3 ID : **4410095932366**
Option 4 ID : **4410095932365**

QuickSarkari.com | WhatsApp Channel | Telegram: t.me/quick_sarkari

Comprehension:

Read the passage below and answer the questions that follow.

The field of soft robotics has seen a dramatic leap forward with the development of bio-inspired machines, particularly those mimicking the locomotion of invertebrates. Traditional robotics often relies on rigid components and complex electronic feedback loops, limiting their adaptability in unpredictable environments. However, soft robots, constructed primarily from flexible materials like silicone and hydrogels, are inherently more resilient and capable of navigating complex terrains, such as those found in deep-sea exploration or disaster relief scenarios. One significant innovation is the robotic jellyfish. These devices leverage the fluid dynamics of their natural counterparts—using pneumatic or hydraulic actuation systems to pulse their bell-shaped bodies—which makes them exceptionally energy-efficient for underwater propulsion. Furthermore, their compliant structure minimizes the risk of damage when interacting with delicate marine ecosystems.

The inherent complexity of manufacturing and controlling these materials, however, presents a formidable challenge. The mathematical modelling of soft bodies under external forces is significantly more difficult than for rigid bodies, necessitating advanced computational frameworks. Yet, the benefits often outweigh the hurdles. For instance, future iterations are envisioned to integrate self-healing polymers, allowing the robots to automatically repair minor punctures, thereby extending their operational lifespan dramatically. This shift toward machines that mimic nature's evolutionary success, promoting both agility and robustness, represents a paradigm shift away from purely mechanical design towards true bio-mimicry.

SubQuestion No : 18

Q.18 Identify the fact given in the passage.

Ans

✔ 1. Soft robots are constructed from flexible materials like silicone and hydrogels.

✘ 2. Traditional robotics is incapable of navigating any complex terrain.

✘ 3. Future soft robots will exclusively use self-healing polymers.

✘ 4. The robotic jellyfish is currently the most energy-efficient underwater vehicle.

Question ID : **4410091501993**
Option 1 ID : **4410095932369**
Option 2 ID : **4410095932370**
Option 3 ID : **4410095932368**
Option 4 ID : **4410095932371**

QuickSarkari.com | WhatsApp Channel | Telegram: t.me/quick_sarkari

Comprehension:

Read the passage below and answer the questions that follow.

The field of soft robotics has seen a dramatic leap forward with the development of bio-inspired machines, particularly those mimicking the locomotion of invertebrates. Traditional robotics often relies on rigid components and complex electronic feedback loops, limiting their adaptability in unpredictable environments. However, soft robots, constructed primarily from flexible materials like silicone and hydrogels, are inherently more resilient and capable of navigating complex terrains, such as those found in deep-sea exploration or disaster relief scenarios. One significant innovation is the robotic jellyfish. These devices leverage the fluid dynamics of their natural counterparts—using pneumatic or hydraulic actuation systems to pulse their bell-shaped bodies—which makes them exceptionally energy-efficient for underwater propulsion. Furthermore, their compliant structure minimizes the risk of damage when interacting with delicate marine ecosystems.

The inherent complexity of manufacturing and controlling these materials, however, presents a formidable challenge. The mathematical modelling of soft bodies under external forces is significantly more difficult than for rigid bodies, necessitating advanced computational frameworks. Yet, the benefits often outweigh the hurdles. For instance, future iterations are envisioned to integrate self-healing polymers, allowing the robots to automatically repair minor punctures, thereby extending their operational lifespan dramatically. This shift toward machines that mimic nature's evolutionary success, promoting both agility and robustness, represents a paradigm shift away from purely mechanical design towards true bio-mimicry.

SubQuestion No : 19

Q.19 **Select the correct summary for the passage.**

Ans

✗ 1. While soft robots like the robotic jellyfish are useful for deep-sea exploration, their high manufacturing cost limits their widespread adoption in disaster relief missions.

✓ 2. Soft robotics, using flexible materials and bio-inspired designs (like the jellyfish), overcomes the limitations of rigid robots in complex environments, despite facing significant computational and manufacturing challenges.

✗ 3. The primary challenge in soft robotics is the necessity of integrating self-healing polymers, which are key to extending the operational lifespan of these compliant machines.

✗ 4. Invertebrate locomotion provides the perfect model for all future robotics, rendering traditional rigid robotics entirely obsolete in all engineering applications.

Question ID : **4410091501994**
Option 1 ID : **4410095932372**
Option 2 ID : **4410095932373**
Option 3 ID : **4410095932374**
Option 4 ID : **4410095932375**

QuickSarkari.com | WhatsApp Channel | Telegram: t.me/quick_sarkari

Comprehension:

Read the passage below and answer the questions that follow.

The field of soft robotics has seen a dramatic leap forward with the development of bio-inspired machines, particularly those mimicking the locomotion of invertebrates. Traditional robotics often relies on rigid components and complex electronic feedback loops, limiting their adaptability in unpredictable environments. However, soft robots, constructed primarily from flexible materials like silicone and hydrogels, are inherently more resilient and capable of navigating complex terrains, such as those found in deep-sea exploration or disaster relief scenarios. One significant innovation is the robotic jellyfish. These devices leverage the fluid dynamics of their natural counterparts—using pneumatic or hydraulic actuation systems to pulse their bell-shaped bodies—which makes them exceptionally energy-efficient for underwater propulsion. Furthermore, their compliant structure minimizes the risk of damage when interacting with delicate marine ecosystems.

The inherent complexity of manufacturing and controlling these materials, however, presents a formidable challenge. The mathematical modelling of soft bodies under external forces is significantly more difficult than for rigid bodies, necessitating advanced computational frameworks. Yet, the benefits often outweigh the hurdles. For instance, future iterations are envisioned to integrate self-healing polymers, allowing the robots to automatically repair minor punctures, thereby extending their operational lifespan dramatically. This shift toward machines that mimic nature's evolutionary success, promoting both agility and robustness, represents a paradigm shift away from purely mechanical design towards true bio-mimicry.

SubQuestion No : 20

Q.20 What is the antonym of the word 'formidable' as used in the passage?

Ans

✗ 1. Powerful

✓ 2. Trivial

✗ 3. Difficult

✗ 4. Challenging

Question ID : **4410091501995**
Option 1 ID : **4410095932379**
Option 2 ID : **4410095932377**
Option 3 ID : **4410095932376**
Option 4 ID : **4410095932378**

"

QuickSarkari

Quick Sarkari

Thank you for studying with QuickSarkari!

Get the latest Sarkari Naukri notifications, admit cards, results, answer keys and free previous-year papers first - follow us on WhatsApp and Telegram.

Visit www.quicksarkari.com

Join our WhatsApp Channel

https://whatsapp.com/channel/0029VaxxbrREquiPoXTWM229

Join our Telegram Channel

https://t.me/quick_sarkari

Share this PDF with your friends preparing for DSSSB exams.