DSSSB PREVIOUS YEAR PAPER WITH ANSWER KEY

DSSSB Assistant Superintendent

1 July 2026 · Shift 2

डीएसएसएसबी सहायक अधीक्षक – 1 जुलाई 2026, शिफ्ट 2 का प्रश्न पत्र, उत्तर कुंजी सहित

199	120 min	1 / −0.25	EN + HI
Questions / प्रश्न	Duration / समय	Marks per Q / अंक	Language / भाषा

Sections: General Intelligence and Reasoning Ability, General Awareness, Arithmetical and Numerical Ability, English Language and Comprehension, Hindi Language and Comprehension

INSIDE THIS PDF / इस PDF में

Question Paper in English + Hindi with Answer Key (correct option marked in green) + answer table Page 2–43
प्रश्न पत्र अंग्रेज़ी + हिंदी में, उत्तर कुंजी सहित (सही विकल्प हरे रंग में) + उत्तर तालिका

HOW TO USE THIS PAPER / इस पेपर का उपयोग कैसे करें

1. Attempt the paper first as a timed online mock test (link below).
   पहले नीचे दिए लिंक से इसे टाइमर के साथ ऑनलाइन मॉक टेस्ट के रूप में हल करें।
2. Check your score, section-wise analysis and solutions online.
   ऑनलाइन अपना स्कोर, खंड-वार विश्लेषण और हल देखें।
3. Use this PDF for revision. Correct answers are shown in green.
   दोहराने के लिए इस PDF का उपयोग करें। सही उत्तर हरे रंग में दिए गए हैं।

Attempt this paper as a FREE online mock test

इस पेपर को फ्री ऑनलाइन मॉक टेस्ट के रूप में हल करें – टाइमर, स्कोर और हल के साथ

https://quicksarkari.com/dsssb-assistant-superintendent-01-july-2026-shift-2-mock-test/

All DSSSB Assistant Superintendent papers and mock tests: **quicksarkari.com/dsssb-mock-test/#assistant-superintendent**

Join WhatsApp Channel | Join Telegram Channel

DSSSB Assistant Superintendent – Question Paper (English + Hindi)

DSSSB सहायक अधीक्षक – प्रश्न पत्र (अंग्रेज़ी + हिंदी)

Exam held on 1 July 2026, Shift 2 · 199 questions · correct answers marked ✔ in green
परीक्षा तिथि 1 जुलाई 2026, शिफ्ट 2 · 199 प्रश्न · सही उत्तर हरे रंग में ✔ से चिह्नित

> The official paper for this shift was in English. The Hindi version of each question is a translation prepared by QuickSarkari; the language-section questions are shown as asked.
> इस शिफ्ट का आधिकारिक प्रश्न पत्र अंग्रेज़ी में था। प्रत्येक प्रश्न का हिंदी संस्करण QuickSarkari द्वारा तैयार किया गया अनुवाद है; भाषा खंड के प्रश्न मूल रूप में दिए गए हैं।

General Intelligence and Reasoning Ability

Q.1 Refer to the following letter series and answer the question. Counting to be done from left to right.
(Left) T B Y Z M R W A Q F H G U E S D I C X K O (Right)
How many such consonants are there each of which is immediately preceded by a consonant and also immediately followed by a consonant?
निम्नलिखित अक्षर श्रृंखला को देखें और प्रश्न का उत्तर दें। गिनती बाएँ से दाएँ की जानी है।
(बाएँ) T B Y Z M R W A Q F H G U E S D I C X K O (दाएँ)
ऐसे कितने व्यंजन हैं जिनमें से प्रत्येक के ठीक पहले एक व्यंजन है और ठीक बाद भी एक व्यंजन है?

(1) 8 ✔
(2) 9
(3) 10
(4) 7

Q.2 In a certain code language, 'A + B' means 'A is the sister of B', 'A – B' means 'A is the brother of B', 'A × B' means 'A is the wife of B' and 'A ÷ B' means 'A is the father of B'.
How is J related to N if 'J ÷ K + L – M × N'?
एक निश्चित कूट भाषा में, 'A + B' का अर्थ है 'A, B की बहन है', 'A – B' का अर्थ है 'A, B का भाई है', 'A × B' का अर्थ है 'A, B की पत्नी है' और 'A ÷ B' का अर्थ है 'A, B का पिता है'।
यदि 'J ÷ K + L – M × N' है, तो J, N से किस प्रकार संबंधित है?

(1) Father / पिता
(2) Wife's father / पत्नी के पिता ✔
(3) Brother / भाई
(4) Wife's brother / पत्नी के भाई

Q.3 P, Q, R, S, T and U live on six different floors of the same building. The lowermost floor in the building is numbered 1, the floor above it, number 2 and so on till the topmost floor is numbered 6. R lives on an odd numbered floor but not 3. The sum of floors on which Q and R live is 4. Only 3 people live between U and P. S lives immediately above T. The sum of floors on which T and U live is 10. What is the sum of floors on which T and P live?

P, Q, R, S, T और U एक ही इमारत की छह अलग-अलग मंजिलों पर रहते हैं। इमारत की सबसे निचली मंजिल की संख्या 1 है, उसके ऊपर वाली मंजिल की संख्या 2 है और इसी प्रकार सबसे ऊपरी मंजिल की संख्या 6 है। R एक विषम संख्या वाली मंजिल पर रहता है लेकिन 3 पर नहीं। Q और R जिन मंजिलों पर रहते हैं उनका योग 4 है। U और P के बीच केवल 3 लोग रहते हैं। S, T के ठीक ऊपर रहता है। T और U जिन मंजिलों पर रहते हैं उनका योग 10 है। T और P जिन मंजिलों पर रहते हैं उनका योग क्या है?

(1) 8
(2) **6 ✔**
(3) 7
(4) 5

Q.4 This question is based on the five, three-digit numbers given below.
(Left) 843 254 371 723 463 (Right)
(Example- 697 – First digit = 6, second digit = 9 and third digit = 7)
What will be the resultant if the third digit of the highest number is added to the second digit of the lowest number?

यह प्रश्न नीचे दी गई तीन अंकों वाली पाँच संख्याओं पर आधारित है।
(बाएँ) 843 254 371 723 463 (दाएँ)
(उदाहरण- 697 – पहला अंक = 6, दूसरा अंक = 9 और तीसरा अंक = 7)
यदि सबसे बड़ी संख्या के तीसरे अंक को सबसे छोटी संख्या के दूसरे अंक में जोड़ा जाए, तो परिणाम क्या होगा?

(1) 7
(2) 9
(3) **8 ✔**
(4) 10

Q.5 Each vowel in the word BURGLARISED is changed to the second letter following it in the English alphabetical order AND each consonant is changed to the letter immediately preceding it in the English alphabetical order. How many letters will appear exactly twice in the group of letters thus formed?

शब्द BURGLARISED में प्रत्येक स्वर को अंग्रेजी वर्णमाला क्रम में उसके बाद आने वाले दूसरे अक्षर से बदल दिया जाता है और प्रत्येक व्यंजन को अंग्रेजी वर्णमाला क्रम में उसके ठीक पहले आने वाले अक्षर से बदल दिया जाता है। इस प्रकार बने अक्षरों के समूह में कितने अक्षर ठीक दो बार आएँगे?

(1) Four / चार
(2) **Three / तीन ✔**
(3) Two / दो
(4) One / एक

Q.6 Select the pair that follows the same pattern as that followed by the two pairs given below. Both pairs follow the same pattern.
TUH : QWK NYN : KAQ

उस युग्म का चयन करें जो उसी पैटर्न का अनुसरण करता है जिसका अनुसरण नीचे दिए गए दो युग्म करते हैं। दोनों युग्म एक ही पैटर्न का अनुसरण करते हैं।
TUH : QWK NYN : KAQ

(1) QCN : NHK
(2) VFH : SAE
(3) HCT : EEW ✔
(4) HRE : EWB

Q.7 M, N, O, P, U, V and W are sitting around a circular table facing the centre. Only two people sit between U and V when counted from the right of U. Only two people sit between V and O. Only three people sit between U and N. M sits to the immediate left of P. Who sits third to the left of W?

M, N, O, P, U, V और W एक वृत्ताकार मेज के चारों ओर केंद्र की ओर मुख करके बैठे हैं। U के दाएँ से गिनने पर U और V के बीच केवल दो व्यक्ति बैठे हैं। V और O के बीच केवल दो व्यक्ति बैठे हैं। U और N के बीच केवल तीन व्यक्ति बैठे हैं। M, P के ठीक बाएँ बैठा है। W के बाएँ से तीसरे स्थान पर कौन बैठा है?

(1) M
(2) V
(3) P ✔
(4) O

Q.8 In a certain code language, '5103' is coded as 'MILK' and '0152' is coded as 'KLEM'. What is the code for '2' in the given code language?

एक निश्चित कूट भाषा में, '5103' को 'MILK' के रूप में कूटबद्ध किया जाता है और '0152' को 'KLEM' के रूप में कूटबद्ध किया जाता है। दी गई कूट भाषा में '2' का कूट क्या है?

(1) E ✔
(2) K
(3) M
(4) L

Q.9 The position(s) of how many letters will remain unchanged if each letter in the word JUMBLES is arranged in alphabetical order?

यदि शब्द JUMBLES के प्रत्येक अक्षर को वर्णमाला क्रम में व्यवस्थित किया जाए, तो कितने अक्षरों का/के स्थान अपरिवर्तित रहेगा/रहेंगे?

(1) 3
(2) 0 ✔
(3) 1
(4) 2

QuickSarkari.com | WhatsApp Channel | Telegram: t.me/quick_sarkari

Q.10 Refer to the following letter series and answer the question. Counting to be done from left to right.
(Left) E S F H G U B R D I C X K Y Z M W A Q T O (Right)
How many such vowels are there each of which is immediately preceded by a consonant and also immediately followed by a consonant?
निम्नलिखित अक्षर श्रृंखला को देखें और प्रश्न का उत्तर दें। गिनती बाएँ से दाएँ की जानी है।
(बाएँ) E S F H G U B R D I C X K Y Z M W A Q T O (दाएँ)
ऐसे कितने स्वर हैं जिनमें से प्रत्येक के ठीक पहले एक व्यंजन है और ठीक बाद भी एक व्यंजन है?

(1) 5
(2) 3 ✔
(3) 4
(4) 6

Q.11 In a certain code language, '5013' is coded as 'NOVA' and '0134' is coded as 'AOMV'.
What is the code for '4' in the given code language?
एक निश्चित कूट भाषा में, '5013' को 'NOVA' के रूप में कूटबद्ध किया जाता है और '0134' को 'AOMV' के रूप में कूटबद्ध किया जाता है।
दी गई कूट भाषा में '4' का कूट क्या है?

(1) M ✔
(2) A
(3) V
(4) O

Q.12 In a certain code language, A+ B means 'A is the brother of B'
A – B means 'A is the sister of B'
A x B means 'A is the wife of B'
A ÷ B means 'A is the father of B'
Based on the above, how is H related to D if 'D x Y ÷ R – H+ F'?
एक निश्चित कूट भाषा में, A+ B का अर्थ है 'A, B का भाई है'
A – B का अर्थ है 'A, B की बहन है'
A x B का अर्थ है 'A, B की पत्नी है'
A ÷ B का अर्थ है 'A, B का पिता है'
उपरोक्त के आधार पर, यदि 'D x Y ÷ R – H+ F' है, तो H, D से किस प्रकार संबंधित है?

(1) Sister / बहन
(2) Brother / भाई
(3) Daughter / बेटी
(4) Son / बेटा ✔

Q.13 Refer to the following number and symbol series and answer the question that follows. Counting to be done from left to right only.
(Left) 1 @ 9 # $ 7 + 6 3 Ω 2 & 5 * £ % 4 8 (Right)
How many such symbols are there which are immediately preceded by a number and also immediately followed by another symbol?

निम्नलिखित संख्या और प्रतीक श्रृंखला को देखें और उसके बाद दिए गए प्रश्न का उत्तर दें। गिनती केवल बाएँ से दाएँ की जानी है।
(बाएँ) 1 @ 9 # $ 7 + 6 3 Ω 2 & 5 * £ % 4 8 (दाएँ)
ऐसे कितने प्रतीक हैं जिनके ठीक पहले एक संख्या है और ठीक बाद एक अन्य प्रतीक है?

(1) 1
(2) 3
(3) 2 ✔
(4) 0

Q.14 Each of A, B, C, D, E, F and G has an exam on a different day of a week starting from Monday and ending on Sunday of the same week. Only three people have the exam between E and F. Only three people have the exam between G and C. A has the exam on some day before D and on some day after B. Only C has the exam after F. Who has the exam on Thursday?

A, B, C, D, E, F और G में से प्रत्येक की परीक्षा एक ही सप्ताह के सोमवार से शुरू होकर रविवार को समाप्त होने वाले सप्ताह के एक अलग-अलग दिन है। E और F के बीच केवल तीन व्यक्तियों की परीक्षा है। G और C के बीच केवल तीन व्यक्तियों की परीक्षा है। A की परीक्षा D से पहले किसी दिन और B के बाद किसी दिन है। केवल C की परीक्षा F के बाद है। गुरुवार को किसकी परीक्षा है?

(1) E
(2) G
(3) A ✔
(4) F

Q.15 Refer to the following letter, symbol series and answer the question that follows. Counting to be done from left to right only.
(Left) Q Q \ A N A / \ Z K ? @ ^ G = O O M X $ F (Right)
How many such symbols are there, each of which is immediately preceded by a letter and also immediately followed by a letter?

निम्नलिखित अक्षर, प्रतीक श्रृंखला को देखें और उसके बाद दिए गए प्रश्न का उत्तर दें। गिनती केवल बाएँ से दाएँ की जानी है।
(बाएँ) Q Q \ A N A / \ Z K ? @ ^ G = O O M X $ F (दाएँ)
ऐसे कितने प्रतीक हैं, जिनमें से प्रत्येक के ठीक पहले एक अक्षर है और ठीक बाद भी एक अक्षर है?

(1) Three / तीन ✔
(2) Two / दो
(3) None / एक भी नहीं
(4) One / एक

Q.16 Which of the following letter-clusters should replace # and % so that the pattern and relationship followed between the letter-cluster pair on the left side of :: is the same as that on the right side of :: ?
: SVU :: PSR : %

निम्नलिखित में से कौन-से अक्षर-समूह # और % को प्रतिस्थापित करेंगे ताकि :: के बाईं ओर के अक्षर-समूह युग्म के बीच का पैटर्न और संबंध वही हो जो :: के दाईं ओर के अक्षर-समूह युग्म के बीच है?
: SVU :: PSR : %

(1) # = VYZ , % = MON
(2) # = UXY , % = MQN
(3) **# = VYX , % = MPO ✔**
(4) # = UZX , % = LQN

Q.17 Seven people, E, F, G, H, K, L and M, are sitting in a straight line, facing north. Only three people sit to the right of M. H sits third to the left of M. Only three people sit between G and H. Only two people sit between K and G. F sits to the immediate left of L. Who sits at the extreme right end of the line?

सात व्यक्ति, E, F, G, H, K, L और M, उत्तर की ओर मुख करके एक सीधी पंक्ति में बैठे हैं। M के दाईं ओर केवल तीन व्यक्ति बैठे हैं। H, M के बाएँ से तीसरे स्थान पर बैठा है। G और H के बीच केवल तीन व्यक्ति बैठे हैं। K और G के बीच केवल दो व्यक्ति बैठे हैं। F, L के ठीक बाएँ बैठा है। पंक्ति के दाएँ छोर पर कौन बैठा है?

(1) K
(2) G
(3) E
(4) **L ✔**

Q.18 Each of C, D, E, F, K, I and L has an exam on a different day of a week starting from Monday and ending on Sunday of the same week.
Only two people have exam before L. Only one person has exam after F. Only three people have exam between L and D. Only one person has exam between K and C. E has exam immediately before K.
How many people have exam between I and K?

C, D, E, F, K, I और L में से प्रत्येक की परीक्षा एक ही सप्ताह के सोमवार से शुरू होकर रविवार को समाप्त होने वाले सप्ताह के एक अलग-अलग दिन है।
L से पहले केवल दो व्यक्तियों की परीक्षा है। F के बाद केवल एक व्यक्ति की परीक्षा है। L और D के बीच केवल तीन व्यक्तियों की परीक्षा है।
K और C के बीच केवल एक व्यक्ति की परीक्षा है। E की परीक्षा K के ठीक पहले है।
I और K के बीच कितने व्यक्तियों की परीक्षा है?

(1) One / एक
(2) Three / तीन
(3) **Two / दो ✔**
(4) Four / चार

Q.19 EKPU is related to AGVA in a certain way based on the English alphabetical order. In the same way, OUNS is related to KQTY. To which of the given options is CIFK related, following the same logic?

अंग्रेजी वर्णमाला क्रम के आधार पर EKPU एक निश्चित प्रकार से AGVA से संबंधित है। उसी प्रकार, OUNS, KQTY से संबंधित है। समान तर्क का अनुसरण करते हुए, CIFK दिए गए विकल्पों में से किससे संबंधित है?

(1) YEQL
(2) **YELQ ✔**
(3) YLAE
(4) YALE

Q.20 Each of L, M, N, O, P, Q, and R has a shift on a different day of the week starting from Monday and ending on Sunday. L has a shift on Wednesday. Only two people have shifts between L and N. O's shift is on the day immediately before Q. M's shift is immediately after N. R has a shift on Friday. Which day does M have a shift?

L, M, N, O, P, Q और R में से प्रत्येक की शिफ्ट सोमवार से शुरू होकर रविवार को समाप्त होने वाले सप्ताह के एक अलग-अलग दिन है। L की शिफ्ट बुधवार को है। L और N के बीच केवल दो व्यक्तियों की शिफ्ट है। O की शिफ्ट Q से ठीक पहले वाले दिन है। M की शिफ्ट N के ठीक बाद है। R की शिफ्ट शुक्रवार को है। M की शिफ्ट किस दिन है?

(1) Monday / सोमवार

(2) Saturday / शनिवार

(3) Tuesday / मंगलवार

(4) Sunday / रविवार ✔

Q.21 If 1 is added to each odd digit and 2 is subtracted from each even digit in the number 8173654, which of the following digits will be second from the left in the new number thus formed?

यदि संख्या 8173654 में प्रत्येक विषम अंक में 1 जोड़ा जाए और प्रत्येक सम अंक में से 2 घटाया जाए, तो इस प्रकार बनी नई संख्या में बाएँ से दूसरा अंक निम्नलिखित में से कौन-सा होगा?

(1) 4

(2) 2 ✔

(3) 7

(4) 6

Q.22 Which of the following letter-number clusters will replace the question mark (?) in the given series to make it logically complete?

SGH34 , UIJ26 , WKL18 , YMN10 , ?

निम्नलिखित में से कौन-सा अक्षर-संख्या समूह दी गई श्रृंखला में प्रश्न चिह्न (?) के स्थान पर आकर उसे तार्किक रूप से पूर्ण करेगा?

SGH34 , UIJ26 , WKL18 , YMN10 , ?

(1) COP 2

(2) ALP 2

(3) AIP 2

(4) AOP 2 ✔

Q.23 What will come in the place of '?' in the following equation, if '+' and '-' are interchanged and 'x' and '÷' are interchanged?

49 x 7 - 19 ÷ 3 + 14 = ?

यदि '+' और '-' को आपस में बदल दिया जाए तथा 'x' और '÷' को आपस में बदल दिया जाए, तो निम्नलिखित समीकरण में '?' के स्थान पर क्या आएगा?

49 x 7 - 19 ÷ 3 + 14 = ?

(1) 54

(2) 50 ✔

(3) 52

(4) 48

Q.24 Select the set in which the numbers are related in the same way as are the numbers of the following sets.
(NOTE : Operations should be performed on the whole numbers, without breaking down the numbers into its constituent digits. E.g. 13 – Operations on 13 such as adding / subtracting /multiplying etc. to 13 can be performed. Breaking down 13 into 1 and 3 and then performing mathematical operations on 1 and 3 is not allowed)
(202,114,317)
(132,198,331)

उस समुच्चय का चयन करें जिसमें संख्याएँ उसी प्रकार संबंधित हैं जिस प्रकार निम्नलिखित समुच्चयों की संख्याएँ संबंधित हैं।
(ध्यान दें : संक्रियाएँ संख्याओं को उनके घटक अंकों में तोड़े बिना, पूर्ण संख्याओं पर की जानी चाहिए। उदाहरण के लिए 13 – 13 पर संक्रियाएँ जैसे 13 में जोड़ना / घटाना / गुणा करना आदि किया जा सकता है। 13 को 1 और 3 में तोड़ना और फिर 1 और 3 पर गणितीय संक्रियाएँ करना वर्जित है)
(202,114,317)
(132,198,331)

(1) (152,256,407)
(2) (225,101,336)
(3) (178,224,403) ✔
(4) (216,99,313)

Q.25 Which of the following letter-number clusters will replace the question mark (?) in the given series to make it logically complete?
NPJ 14 MOI 23 LNH 32 KMG 41 ?

निम्नलिखित में से कौन-सा अक्षर-संख्या समूह दी गई श्रृंखला में प्रश्न चिह्न (?) के स्थान पर आकर उसे तार्किक रूप से पूर्ण करेगा?
NPJ 14 MOI 23 LNH 32 KMG 41 ?

(1) JLF51
(2) JLE51
(3) JLF50 ✔
(4) JLE50

Q.26 Select the figure that will come next in the following figure series.

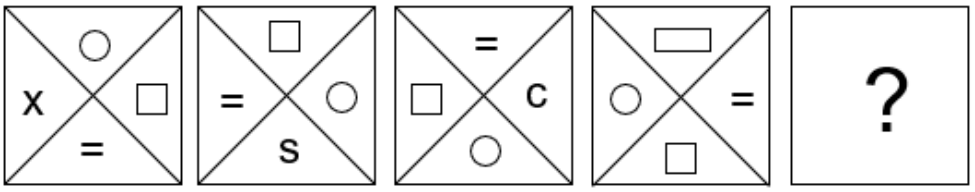

उस आकृति का चयन करें जो निम्नलिखित आकृति श्रृंखला में आगे आएगी।

(1) 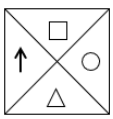
(2) 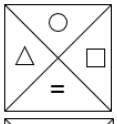 ✔
(3) 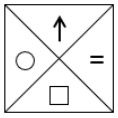
(4) 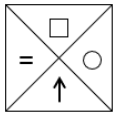

Q.27 What will come in the place of the question mark (?) in the following equation, if '–' and '÷' are interchanged and '×' and '+' are interchanged?
63 × 8 ÷ 5 + 8 − 2 = ?
यदि '–' और '÷' को आपस में बदल दिया जाए तथा '×' और '+' को आपस में बदल दिया जाए, तो निम्नलिखित समीकरण में प्रश्न चिह्न (?) के स्थान पर क्या आएगा?
63 × 8 ÷ 5 + 8 − 2 = ?

(1) 71
(2) 61
(3) 51 ✔
(4) 91

Q.28 If 2 is added to each odd digit and 1 is subtracted from each even digit in the number 7324156, what will be the sum of all digits of the number so formed?
यदि संख्या 7324156 में प्रत्येक विषम अंक में 2 जोड़ा जाए और प्रत्येक सम अंक में से 1 घटाया जाए, तो इस प्रकार बनी संख्या के सभी अंकों का योग क्या होगा?

(1) 32
(2) 31
(3) 33 ✔
(4) 34

Q.29 Based on the English alphabetical order, three of the following four letter clusters are alike in a certain way and thus form a group. Which letter cluster DOES NOT belong to that group?
(Note: The odd one out is not based on the number of consonants/vowels or their position in the letter cluster.)
अंग्रेजी वर्णमाला क्रम के आधार पर, निम्नलिखित चार अक्षर-समूहों में से तीन किसी निश्चित प्रकार से एकसमान हैं और इस प्रकार एक समूह बनाते हैं। कौन-सा अक्षर-समूह उस समूह से संबंधित नहीं है?
(ध्यान दें: असंगत अक्षर-समूह, उस अक्षर-समूह में व्यंजनों/स्वरों की संख्या या उनके स्थान पर आधारित नहीं है।)

(1) UPS ✔
(2) NIK
(3) SNP
(4) PKM

Q.30 Select the set in which the numbers are related in the same way as are the numbers of the following sets.
(NOTE: Operations should be performed on the whole numbers, without breaking down the numbers into its constituent digits. E.g. 13 – Operations on 13 such as adding / subtracting /multiplying etc. to 13 can be performed. Breaking down 13 into 1 and 3 and then performing mathematical operations on 1 and 3 is not allowed)
(54,113,165)
(76,125,199)

उस समुच्चय का चयन करें जिसमें संख्याएँ उसी प्रकार संबंधित हैं जिस प्रकार निम्नलिखित समुच्चयों की संख्याएँ संबंधित हैं।
(ध्यान दें: संक्रियाएँ संख्याओं को उनके घटक अंकों में तोड़े बिना, पूर्ण संख्याओं पर की जानी चाहिए। उदाहरण के लिए 13 – 13 पर संक्रियाएँ जैसे 13 में जोड़ना / घटाना / गुणा करना आदि किया जा सकता है। 13 को 1 और 3 में तोड़ना और फिर 1 और 3 पर गणितीय संक्रियाएँ करना वर्जित है)
(54,113,165)
(76,125,199)

(1) (88,102,198)
(2) (73,105,174)
(3) (93,108,199) ✔
(4) (99,105,201)

Q.31 Select the pair that follows the same pattern as the one followed by the two pairs given below. Both pairs follow the same pattern.
RNR : SPU SGW : TIZ

उस युग्म का चयन करें जो उसी पैटर्न का अनुसरण करता है जिसका अनुसरण नीचे दिए गए दो युग्म करते हैं। दोनों युग्म एक ही पैटर्न का अनुसरण करते हैं।
RNR : SPU SGW : TIZ

(1) QUF : RWJ
(2) KTF : MWG
(3) VMM : XON
(4) XPG : YRJ ✔

Q.32 In this question, three statements are given, followed by two conclusions numbered I and II. Assuming the statements to be true, even if they seem to be at variance with commonly known facts, decide which of the conclusion(s) logically follows/follow from the statements.
Statements: All lotions are creams. All creams are dispensers. Some dispensers are towels.
Conclusions (I) : Some lotions are towels.
Conclusions (II) : Some creams are towels.

इस प्रश्न में तीन कथन दिए गए हैं, जिनके बाद I और II से क्रमांकित दो निष्कर्ष दिए गए हैं। कथनों को सत्य मानते हुए, भले ही वे सामान्य रूप से ज्ञात तथ्यों से भिन्न प्रतीत होते हों, निर्णय करें कि कौन-सा/से निष्कर्ष कथनों का तार्किक रूप से अनुसरण करता है/करते हैं।
कथन: सभी लोशन, क्रीम हैं। सभी क्रीम, डिस्पेंसर हैं। कुछ डिस्पेंसर, तौलिए हैं।
निष्कर्ष (I) : कुछ लोशन, तौलिए हैं।
निष्कर्ष (II) : कुछ क्रीम, तौलिए हैं।

(1) Only conclusion II follows. / केवल निष्कर्ष II अनुसरण करता है।
(2) Only conclusion I follows. / केवल निष्कर्ष I अनुसरण करता है।
(3) Both conclusions I and II follow. / निष्कर्ष I और II दोनों अनुसरण करते हैं।
(4) Neither conclusion I nor II follows. / न तो निष्कर्ष I और न ही II अनुसरण करता है। ✔

Q.33 Select the set in which the numbers are related in the same way as are the numbers of the following sets.
(NOTE: Operations should be performed on the whole numbers, without breaking down the numbers into their constituent digits. E.g. 13 – Operations on 13 such as adding / subtracting /multiplying, etc. to 13 can be performed. Breaking down 13 into 1 and 3 and then performing mathematical operations on 1 and 3 is not allowed.)
(225,45,5)
(208,52,4)
उस समुच्चय का चयन करें जिसमें संख्याएँ उसी प्रकार संबंधित हैं जिस प्रकार निम्नलिखित समुच्चयों की संख्याएँ संबंधित हैं।
(ध्यान दें: संक्रियाएँ संख्याओं को उनके घटक अंकों में तोड़े बिना, पूर्ण संख्याओं पर की जानी चाहिए। उदाहरण के लिए 13 – 13 पर संक्रियाएँ जैसे 13 में जोड़ना / घटाना / गुणा करना आदि किया जा सकता है। 13 को 1 और 3 में तोड़ना और फिर 1 और 3 पर गणितीय संक्रियाएँ करना वर्जित है।)
(225,45,5)
(208,52,4)

(1) (228,38,6) ✔
(2) (248,31,9)
(3) (223,32,7)
(4) (253,27,9)

Q.34 What should come in place of '?' in the given series?
14 20 29 41 56 ?
दी गई श्रृंखला में '?' के स्थान पर क्या आना चाहिए?
14 20 29 41 56 ?

(1) 82
(2) 70
(3) 78
(4) 74 ✔

Q.35 If 'A' stands for '÷', 'B' stands for '×', 'C' stands for '+', and 'D' stands for '−', then what will come in place of question mark (?) in the following equation?
30 D 15 B 31 A 15 C 33 = ?
यदि 'A' का अर्थ '÷', 'B' का अर्थ '×', 'C' का अर्थ '+' और 'D' का अर्थ '−' है, तो निम्नलिखित समीकरण में प्रश्न चिह्न (?) के स्थान पर क्या आएगा?
30 D 15 B 31 A 15 C 33 = ?

(1) 33
(2) 34
(3) 32 ✔
(4) 30

Q.36 What should come in place of '?' in the given series?
3 15 60 180 360 ?
दी गई श्रृंखला में '?' के स्थान पर क्या आना चाहिए?
3 15 60 180 360 ?

(1) 360 ✔
(2) 370
(3) 380
(4) 365

Q.37 In the following number-pairs, the second number is obtained by applying certain mathematical operations to the first number. Select the set in which the numbers are related in the same way as are the numbers of the following sets. (NOTE: Operations should be performed on the whole numbers, without breaking down the numbers into their constituent digits. E.g. 13 – Operations on 13 such as adding/ subtracting /multiplying to 13 can be performed. Breaking down 13 into 1 and 3 and then performing mathematical operations on 1 and 3 is not allowed.)
(41, 112)
(26, 97)
निम्नलिखित संख्या-युग्मों में, पहली संख्या पर कुछ गणितीय संक्रियाएँ करके दूसरी संख्या प्राप्त की गई है। उस समुच्चय का चयन करें जिसमें संख्याएँ उसी प्रकार संबंधित हैं जिस प्रकार निम्नलिखित समुच्चयों की संख्याएँ संबंधित हैं।
(ध्यान दें: संक्रियाएँ संख्याओं को उनके घटक अंकों में तोड़े बिना, पूर्ण संख्याओं पर की जानी चाहिए। उदाहरण के लिए 13 – 13 पर संक्रियाएँ जैसे 13 में जोड़ना/ घटाना / गुणा करना किया जा सकता है। 13 को 1 और 3 में तोड़ना और फिर 1 और 3 पर गणितीय संक्रियाएँ करना वर्जित है।)
(41, 112)
(26, 97)

(1) (36, 117)
(2) (18, 79)
(3) (28, 98)
(4) (47, 118) ✔

Q.38 Which of the following letter-number clusters will replace the question mark (?) in the given series to make it logically complete?
FU30, HS32, JQ34, LO36, ?
निम्नलिखित में से कौन-सा अक्षर-संख्या समूह दी गई श्रृंखला में प्रश्न चिह्न (?) के स्थान पर आकर उसे तार्किक रूप से पूर्ण करेगा?
FU30, HS32, JQ34, LO36, ?

(1) LM40
(2) NM40
(3) LM38
(4) NM38 ✔

QuickSarkari.com | WhatsApp Channel | Telegram: t.me/quick_sarkari

Q.39 If the water source is placed along X-Y, as shown in the figure, which of the given options will be the water reflection of the given figure?

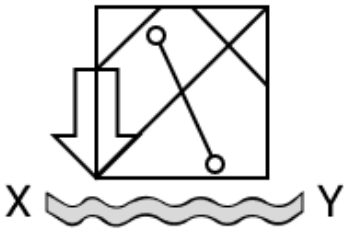

यदि आकृति में दर्शाए अनुसार जल स्रोत को X-Y के अनुदिश रखा जाए, तो दिए गए विकल्पों में से कौन-सी आकृति दी गई आकृति का जल प्रतिबिंब होगी?

(1) 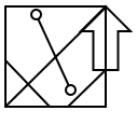

(2) 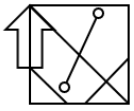 ✔

(3) 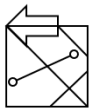

(4) 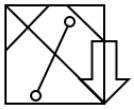

Q.40 What should come in place of the question mark (?) in the given series?
8, 25, 59, 110, 178 , ?

दी गई श्रृंखला में प्रश्न चिह्न (?) के स्थान पर क्या आना चाहिए?
8, 25, 59, 110, 178 , ?

(1) 263 ✔
(2) 264
(3) 265
(4) 262

General Awareness

Q.41 Which mosque was the first major example of Indo-Islamic architecture built by Qutbuddin Aibak?
कुतुबुद्दीन ऐबक द्वारा निर्मित कौन-सी मस्जिद इंडो-इस्लामिक वास्तुकला का पहला प्रमुख उदाहरण थी?

(1) Alai Darwaza / अलाई दरवाजा
(2) Quwwat-ul-Islam Mosque / कुव्वत-उल-इस्लाम मस्जिद ✔
(3) Jamat Khana Masjid / जमात खाना मस्जिद
(4) Adhai Din Ka Jhoupra / अढ़ाई दिन का झोंपड़ा

Q.42 Who among the following was associated with the establishment of the Berlin Committee for Indian Independence in 1914?
निम्नलिखित में से कौन 1914 में भारतीय स्वतंत्रता के लिए बर्लिन समिति की स्थापना से संबद्ध थे?

(1) Lala Har Dayal / लाला हरदयाल
(2) Virendranath Chattopadhyaya / वीरेंद्रनाथ चट्टोपाध्याय ✔
(3) Raja Mahendra Pratap / राजा महेंद्र प्रताप
(4) V. D. Savarkar / वी. डी. सावरकर

Q.43 Which of the following tribal rebellions occurred earliest?

निम्नलिखित में से कौन-सा जनजातीय विद्रोह सबसे पहले हुआ था?

(1) Pahariya Sardar's Revolution / पहाड़िया सरदार विद्रोह

(2) Chakma rebellion / चकमा विद्रोह

(3) **Chuar uprising / चुआर विद्रोह ✔**

(4) Halba rebellion / हल्बा विद्रोह

Q.44 Which of the following was a major economic consequence of the political instability and warfare in 18th-century India?

18वीं शताब्दी के भारत में राजनीतिक अस्थिरता और युद्धों का एक प्रमुख आर्थिक परिणाम निम्नलिखित में से कौन-सा था?

(1) Rapid industrial growth / तीव्र औद्योगिक विकास

(2) Abolition of land revenue systems / भू-राजस्व प्रणालियों का उन्मूलन

(3) **Prolonged trade disruptions / लंबे समय तक व्यापार में व्यवधान ✔**

(4) Significant agricultural expansion / उल्लेखनीय कृषि विस्तार

Q.45 Which of the following features is common in Vijayanagara architecture?

निम्नलिखित में से कौन-सी विशेषता विजयनगर वास्तुकला में सामान्य है?

(1) **Gopurams and mandapas / गोपुरम और मंडप ✔**

(2) Persian domes / फारसी गुंबद

(3) Use of white marble / सफेद संगमरमर का उपयोग

(4) Circular sanctum / वृत्ताकार गर्भगृह

Q.46 Right to Education is enacted under which of the following Amendments of the Indian Constitution?

शिक्षा का अधिकार भारतीय संविधान के निम्नलिखित में से किस संशोधन के तहत अधिनियमित किया गया है?

(1) 100th / 100वां

(2) 101th / 101वां

(3) 89th / 89वां

(4) **86th / 86वां ✔**

Q.47 Which of the following lakes is a saltwater lake?

निम्नलिखित में से कौन-सी झील खारे पानी की झील है?

(1) Wular Lake / वुलर झील

(2) **Sambhar Lake / सांभर झील ✔**

(3) Loktak Lake / लोकटक झील

(4) Dal Lake / डल झील

Q.48 The eastern coastal plain of India in Tamil Nadu state is known as:

तमिलनाडु राज्य में भारत के पूर्वी तटीय मैदान को किस नाम से जाना जाता है?

(1) Konkan Coast / कोंकण तट

(2) Kannad Coast / कन्नड़ तट

(3) Malabar Coast / मालाबार तट

(4) **Coromandel Coast / कोरोमंडल तट ✔**

Q.49 Which Mughal emperor is credited with building the Jama Masjid in Delhi?
दिल्ली में जामा मस्जिद के निर्माण का श्रेय किस मुगल बादशाह को दिया जाता है?

(1) Shah Jahan / शाहजहाँ ✔
(2) Babur / बाबर
(3) Akbar / अकबर
(4) Humayun / हुमायूँ

Q.50 The 18th century saw the rise of which of the following regional powers in western India?
18वीं शताब्दी में पश्चिमी भारत में निम्नलिखित में से किस क्षेत्रीय शक्ति का उदय हुआ?

(1) Rajputs / राजपूत
(2) Jats / जाट
(3) Marathas / मराठा ✔
(4) Sikhs / सिख

Q.51 The provision 'Village Panchayats' under Article 40 was implemented through which Act?
अनुच्छेद 40 के अंतर्गत 'ग्राम पंचायतों' का उपबंध किस अधिनियम के माध्यम से लागू किया गया था?

(1) 97th Amendment, 2011 / 97वां संशोधन, 2011
(2) 73rd Amendment, 1992 / 73वां संशोधन, 1992 ✔
(3) 42nd Amendment, 1976 / 42वां संशोधन, 1976
(4) 86th Amendment, 2002 / 86वां संशोधन, 2002

Q.52 Which two peaks are the highest in the Himalayan range, with one located between Tibet (China) and Nepal, and the other between Nepal and the Indian State of Sikkim?
कौन-सी दो चोटियाँ हिमालय पर्वत श्रृंखला में सबसे ऊँची हैं, जिनमें से एक तिब्बत (चीन) और नेपाल के बीच तथा दूसरी नेपाल और भारत के सिक्किम राज्य के बीच स्थित है?

(1) Mount Everest and Kanchenjunga / माउंट एवरेस्ट और कंचनजंगा ✔
(2) K2 and Dhaulagiri / K2 और धौलागिरि
(3) Nanda Devi and Annapurna / नंदा देवी और अन्नपूर्णा
(4) Makalu and Manaslu / मकालू और मनास्लु

Q.53 Under which Article of the Constitution of India is the "Electoral College" for the Presidential election defined?
भारत के संविधान के किस अनुच्छेद के अंतर्गत राष्ट्रपति चुनाव के लिए "निर्वाचक मंडल" को परिभाषित किया गया है?

(1) Article 52 / अनुच्छेद 52
(2) Article 54 / अनुच्छेद 54 ✔
(3) Article 56 / अनुच्छेद 56
(4) Article 74 / अनुच्छेद 74

Q.54 The 61st Constitutional Amendment Act reduced the voting age for Lok Sabha and Legislative Assembly elections from _____.
61वें संविधान संशोधन अधिनियम ने लोकसभा और विधानसभा चुनावों के लिए मतदान की आयु _____ कर दी।

(1) 23 to 18 / 23 से घटाकर 18
(2) 25 to 21 / 25 से घटाकर 21
(3) 21 to 16 / 21 से घटाकर 16
(4) 21 to 18 / 21 से घटाकर 18 ✔

Q.55 India accounts for what per cent of the total land mass of the world?

विश्व के कुल भू-भाग का कितना प्रतिशत भारत के पास है?

(1) 1.4%

(2) **2.4% ✔**

(3) 4.5%

(4) 3.4%

Q.56 In which landmark case did the Supreme Court of India rule that laws placed under the Ninth Schedule are not immune from judicial review if they violate the basic structure of the Constitution?

किस ऐतिहासिक मामले में भारत के सर्वोच्च न्यायालय ने निर्णय दिया कि नौवीं अनुसूची में रखे गए कानून, यदि वे संविधान के मूल ढांचे का उल्लंघन करते हैं, तो न्यायिक समीक्षा से मुक्त नहीं हैं?

(1) Minerva Mills case (1980) / मिनर्वा मिल्स मामला (1980)

(2) Kesavananda Bharati case (1973) / केशवानंद भारती मामला (1973)

(3) Golaknath case (1967) / गोलकनाथ मामला (1967)

(4) **I.R. Coelho case (2007) / आई.आर. कोएल्हो मामला (2007) ✔**

Q.57 The movement of Birsa Munda was related to which of the following regions in the present day?

बिरसा मुंडा का आंदोलन वर्तमान में निम्नलिखित में से किस क्षेत्र से संबंधित था?

(1) Karnataka / कर्नाटक

(2) Maharashtra / महाराष्ट्र

(3) **Jharkhand / झारखंड ✔**

(4) Rajasthan / राजस्थान

Q.58 Carbonation most actively acts on rocks containing which of the following minerals?

कार्बोनेशन निम्नलिखित में से किस खनिज वाली चट्टानों पर सबसे अधिक सक्रियता से कार्य करता है?

(1) **Calcite / कैल्साइट ✔**

(2) Feldspar / फेल्डस्पार

(3) Mica / अभ्रक

(4) Quartz / क्वार्ट्ज

Q.59 When did Mahatma Gandhi ji move a resolution accepting the Motilal Nehru report's recommendation of Dominion Status within two years?

महात्मा गांधी जी ने दो वर्ष के भीतर डोमिनियन स्टेटस (अधिराज्य का दर्जा) की मोतीलाल नेहरू रिपोर्ट की सिफारिश को स्वीकार करने का प्रस्ताव कब पेश किया?

(1) 1931

(2) 1925

(3) 1922

(4) **1928 ✔**

Q.60 Read the given Assertion (A) and Reason (R) and select the most appropriate option.
Assertion (A): The Hirakud Dam is among the longest dams in the world.
Reason (R): It is constructed across the Yamuna River.

दिए गए अभिकथन (A) और कारण (R) को पढ़ें और सबसे उपयुक्त विकल्प का चयन करें।
अभिकथन (A): हीराकुंड बांध विश्व के सबसे लंबे बांधों में से एक है।
कारण (R): इसका निर्माण यमुना नदी पर किया गया है।

(1) A is false but R is true / A गलत है लेकिन R सही है
(2) A is true but R is false / A सही है लेकिन R गलत है ✓
(3) Both A and R are true, but R is not the correct explanation of A / A और R दोनों सही हैं, लेकिन R, A की सही व्याख्या नहीं है
(4) Both A and R are true, and R is the correct explanation of A / A और R दोनों सही हैं, और R, A की सही व्याख्या है

Q.61 Which of the following statements is/are mandated to be submitted by the government in the Parliament as per the Fiscal Responsibility and Budget Management Act, 2003, in India?
1. Medium-term Fiscal Policy Statement
2. Fiscal Policy Strategy Statement
3. Microeconomic Framework Statement

भारत में राजकोषीय उत्तरदायित्व और बजट प्रबंधन अधिनियम, 2003 के अनुसार, सरकार द्वारा संसद में निम्नलिखित में से कौन-सा/से विवरण प्रस्तुत करना अनिवार्य है?
1. मध्यम-अवधि राजकोषीय नीति विवरण
2. राजकोषीय नीति रणनीति विवरण
3. व्यष्टि अर्थशास्त्रीय (माइक्रोइकोनॉमिक) ढांचा विवरण

(1) 1 and 3 only / केवल 1 और 3
(2) 1, 2 and 3 / 1, 2 और 3
(3) 2 and 3 only / केवल 2 और 3
(4) 1 and 2 only / केवल 1 और 2 ✓

Q.62 What was is shape of the economic recovery in India that the country has experienced after the Covid-19 pandemic in 2020?

2020 में कोविड-19 महामारी के बाद भारत ने अर्थव्यवस्था में किस आकार की रिकवरी का अनुभव किया है?

(1) W-shaped recovery / W-आकार की रिकवरी
(2) L-shaped recovery / L-आकार की रिकवरी
(3) C-shaped recovery / C-आकार की रिकवरी
(4) V-shaped recovery / V-आकार की रिकवरी ✓

Q.63 According to the Ministry of External Affairs, the 23rd round of the India–China Corps Commander Level Meeting held at Chushul–Moldo on 25 October 2025 was the first meeting under which mechanism in the Western Sector since the 24th round of Special Representatives Talks?

विदेश मंत्रालय के अनुसार, 25 अक्टूबर 2025 को चुशूल–मोल्डो में आयोजित भारत–चीन कोर कमांडर स्तरीय बैठक का 23वां दौर, विशेष प्रतिनिधि वार्ता के 24वें दौर के बाद पश्चिमी क्षेत्र में किस तंत्र के तहत पहली बैठक थी?

(1) Working Joint Mechanism / वर्किंग जॉइंट मैकेनिज्म
(2) General Level Mechanism / जनरल लेवल मैकेनिज्म ✓
(3) Border Peace Framework / बॉर्डर पीस फ्रेमवर्क
(4) Strategic Dialogue Mechanism / स्ट्रेटेजिक डायलॉग मैकेनिज्म

Q.64 Which Indian city hosted the inaugural Kho Kho World Cup in January 2025, where India secured both the men's and women's titles?

जनवरी 2025 में पहले खो-खो विश्व कप की मेजबानी किस भारतीय शहर ने की, जिसमें भारत ने पुरुष और महिला दोनों खिताब जीते?

(1) Bengaluru / बेंगलुरु

(2) Hyderabad / हैदराबाद

(3) **New Delhi / नई दिल्ली ✔**

(4) Mumbai / मुंबई

Q.65 Which of the following states of India launched the Witness Protection Scheme, 2025?

भारत के निम्नलिखित में से किस राज्य ने गवाह संरक्षण योजना, 2025 शुरू की?

(1) Maharashtra / महाराष्ट्र

(2) **Haryana / हरियाणा ✔**

(3) Bihar / बिहार

(4) Punjab / पंजाब

Q.66 Which part of the human brain primarily regulates balance and coordination?

मानव मस्तिष्क का कौन-सा भाग मुख्य रूप से संतुलन और समन्वय को नियंत्रित करता है?

(1) **Cerebellum / अनुमस्तिष्क (सेरिबैलम) ✔**

(2) Cerebrum / प्रमस्तिष्क (सेरिब्रम)

(3) Corpus callosum / कॉर्पस कैलोसम

(4) Medulla Oblongata / मेडुला ऑब्लांगेटा

Q.67 Which of the following bodies functions at the block level in the 3-tier Panchayati Raj system?

त्रि-स्तरीय पंचायती राज व्यवस्था में निम्नलिखित में से कौन-सा निकाय प्रखंड (ब्लॉक) स्तर पर कार्य करता है?

(1) **Panchayat Samiti / पंचायत समिति ✔**

(2) Gram Sabha / ग्राम सभा

(3) Gram Panchayat / ग्राम पंचायत

(4) Zila Parishad / जिला परिषद

Q.68 Which of the following is a key tool of RBI's monetary policy ?

निम्नलिखित में से कौन-सा RBI की मौद्रिक नीति का एक प्रमुख साधन है?

(1) Income tax rates / आयकर दरें

(2) Import bans / आयात प्रतिबंध

(3) **Repo rate / रेपो दर ✔**

(4) GST rates / GST दरें

Q.69 Who was elected as the first Caribbean national to serve as Secretary General of the Organization of American States (OAS) in March 2025?

मार्च 2025 में अमेरिकी राज्यों के संगठन (OAS) के महासचिव के रूप में सेवा देने वाले पहले कैरेबियाई नागरिक के रूप में किसे चुना गया?

(1) Luis Almagro / लुइस अल्माग्रो

(2) **Albert Ramdin / अल्बर्ट रामदीन ✔**

(3) Laura Gil / लौरा गिल

(4) Carlos Trujillo / कार्लोस ट्रूजिलो

Q.70 Inflation targeting in India is set by _____.

भारत में मुद्रास्फीति लक्ष्य _____ द्वारा निर्धारित किया जाता है।

(1) State Bank of India / भारतीय स्टेट बैंक

(2) World Bank / विश्व बैंक

(3) Finance Commission / वित्त आयोग

(4) Reserve Bank of India / भारतीय रिज़र्व बैंक ✔

Q.71 Which part of the ear breaks complex sound into frequency components?

कान का कौन-सा भाग जटिल ध्वनि को आवृत्ति घटकों में विभाजित करता है?

(1) Outer ear / बाह्य कान

(2) Auditory nerve / श्रवण तंत्रिका

(3) Eardrum / कर्णपटह

(4) Cochlea / कर्णावर्त (कॉक्लिया) ✔

Q.72 Which athlete was honoured with the 2025 Laureus World Sportsman of the Year Award?

किस एथलीट को 2025 लॉरियस वर्ल्ड स्पोर्ट्समैन ऑफ द ईयर पुरस्कार से सम्मानित किया गया?

(1) Tadej Pogačart / तादेज पोगाचार

(2) Armand Duplantis / आर्मंड डुप्लांटिस ✔

(3) Carlos Alcaraz / कार्लोस अल्काराज़

(4) Max Verstappen / मैक्स वेरस्टैपेन

Q.73 Which country hosted the 6th Summit of the Heads of State/Government of the member States of BIMSTEC (Bay of Bengal Initiative for Multi-Sectoral Technical and Economic Cooperation) in April 2025?

अप्रैल 2025 में BIMSTEC (बहु-क्षेत्रीय तकनीकी और आर्थिक सहयोग के लिए बंगाल की खाड़ी पहल) के सदस्य देशों के राष्ट्राध्यक्षों/शासनाध्यक्षों के 6वें शिखर सम्मेलन की मेजबानी किस देश ने की?

(1) Nepal / नेपाल

(2) Bangladesh / बांग्लादेश

(3) Thailand / थाईलैंड ✔

(4) Myanmar / म्यांमार

Q.74 Which country declared a polio outbreak by the WHO due to detection in healthy children in May 2025?

मई 2025 में स्वस्थ बच्चों में पहचान होने के कारण WHO द्वारा किस देश में पोलियो प्रकोप घोषित किया गया?

(1) Indonesia / इंडोनेशिया

(2) India / भारत

(3) Papua New Guinea / पापुआ न्यू गिनी ✔

(4) Australia / ऑस्ट्रेलिया

Q.75 Which team was crowned the 15th Hockey India Senior Women National Champion held in March 2025?

मार्च 2025 में आयोजित 15वीं हॉकी इंडिया सीनियर महिला राष्ट्रीय चैंपियनशिप का विजेता किस टीम को घोषित किया गया?

(1) Hockey Bengal / हॉकी बंगाल

(2) Hockey Haryana / हॉकी हरियाणा

(3) Hockey Punjab / हॉकी पंजाब

(4) Hockey Jharkhand / हॉकी झारखंड ✔

Q.76 To heal the wounds and form calluses after pruning in plants, the growth of cells is stimulated by _____.

पौधों में छंटाई के बाद घावों को भरने और कैलस बनाने के लिए कोशिकाओं की वृद्धि _____ द्वारा प्रेरित की जाती है।

(1) Abscisic acid / एब्सिसिक अम्ल

(2) Ethylene / एथिलीन

(3) **Auxin / ऑक्सिन ✔**

(4) Gibberllin / जिबरेलिन

Q.77 Which nationwide initiative was launched by Sports Minister Mansukh Mandaviya to promote health and combat pollution in December 2024 ?

दिसंबर 2024 में खेल मंत्री मनसुख मांडविया द्वारा स्वास्थ्य को बढ़ावा देने और प्रदूषण से निपटने के लिए कौन-सी राष्ट्रव्यापी पहल शुरू की गई?

(1) **Fit India Cycling Initiative / फिट इंडिया साइक्लिंग पहल ✔**

(2) Fit India School Certification / फिट इंडिया स्कूल प्रमाणन

(3) National Youth Fitness Drive / राष्ट्रीय युवा फिटनेस अभियान

(4) Khelo India Movement / खेलो इंडिया मूवमेंट

Q.78 In the Union Budget 2025–26, how many new medical seats have been proposed to be added over the next one year?

केंद्रीय बजट 2025–26 में अगले एक वर्ष में कितनी नई मेडिकल सीटें जोड़ने का प्रस्ताव किया गया है?

(1) **10,000 new medical seats / 10,000 नई मेडिकल सीटें ✔**

(2) 20,000 new medical seats / 20,000 नई मेडिकल सीटें

(3) 15,000 new medical seats / 15,000 नई मेडिकल सीटें

(4) 25,000 new medical seats / 25,000 नई मेडिकल सीटें

Q.79 By what year does WHO aim to have 50% of its core budget funded by assessed contributions?

WHO का लक्ष्य किस वर्ष तक अपने मुख्य बजट का 50% निर्धारित अंशदान से वित्तपोषित करना है?

(1) 2025

(2) **2030 ✔**

(3) 2028

(4) 2035

Q.80 Which Indian cricketer was conferred with the Padma Shri in 2025 for his outstanding contributions to the sport?

खेल में उत्कृष्ट योगदान के लिए 2025 में किस भारतीय क्रिकेटर को पद्म श्री से सम्मानित किया गया?

(1) Rohit Sharma / रोहित शर्मा

(2) **R. Ashwin / आर. अश्विन ✔**

(3) Mohammed Shami / मोहम्मद शमी

(4) Virat Kohli / विराट कोहली

Arithmetical and Numerical Ability

Q.81 If a car covers 113.4 km in 9 litres of petrol, how much distance (in km) will it cover in 19 litres of petrol?
यदि एक कार 9 लीटर पेट्रोल में 113.4 km की दूरी तय करती है, तो वह 19 लीटर पेट्रोल में कितनी दूरी (km में) तय करेगी?

(1) 229.4
(2) **239.4** ✔
(3) 231.4
(4) 235.4

Q.82 Varun invests a sum of ₹6600 and Ashish invests a sum of ₹9800 at the same rate of simple interest per annum. If, at the end of 5 years, Ashish gets ₹600 more interest than Varun, then find the rate of interest per annum (in percentage).
वरुण ₹6600 की राशि और आशीष ₹9800 की राशि समान वार्षिक साधारण ब्याज दर पर निवेश करते हैं। यदि 5 वर्ष के अंत में आशीष को वरुण से ₹600 अधिक ब्याज मिलता है, तो वार्षिक ब्याज दर (प्रतिशत में) ज्ञात कीजिए।

(1) **3.75** ✔
(2) 5.75
(3) 2.75
(4) 1.75

Q.83 A batsman in his 11th innings makes a score of 85 runs, thereby increasing his average by 3 runs. What is his average (in runs) after the 11th innings?
एक बल्लेबाज अपनी 11वीं पारी में 85 रन बनाता है, जिससे उसका औसत 3 रन बढ़ जाता है। 11वीं पारी के बाद उसका औसत (रन में) क्या है?

(1) **55** ✔
(2) 58
(3) 88
(4) 85

Q.84 If $x = \sqrt{2025}$ and $y = \sqrt{(0.2025)}$, then what is the value of $x - y$?
यदि $x = \sqrt{2025}$ और $y = \sqrt{(0.2025)}$ है, तो $x - y$ का मान क्या है?

(1) 47.55
(2) **44.55** ✔
(3) 45.5
(4) 47.5

Q.85 Reema spends to saves money is in the ratio 2:3. What percentage of her income does she save?
रीमा के व्यय और बचत का अनुपात 2:3 है। वह अपनी आय का कितना प्रतिशत बचाती है?

(1) 62%
(2) 65%
(3) **60%** ✔
(4) 68%

Q.86 The number 489537 is divisible by which of the following?

संख्या 489537 निम्नलिखित में से किससे विभाज्य है?

(1) 13

(2) **9 ✔**

(3) 7

(4) 11

Q.87 The average of 14 numbers is 8. If each number is multiplied by 5, then what will be the new average?

14 संख्याओं का औसत 8 है। यदि प्रत्येक संख्या को 5 से गुणा किया जाए, तो नया औसत क्या होगा?

(1) 8

(2) 14

(3) **40 ✔**

(4) 5

Q.88 Atul purchased 10 kg of rice at the rate of ₹38 per kg and 30 kg of rice at ₹46 per kg. He sold the whole mixture at the rate of ₹43.5 per kg. Find his loss (in ₹).

अतुल ने ₹38 प्रति kg की दर से 10 kg चावल और ₹46 प्रति kg की दर से 30 kg चावल खरीदा। उसने पूरा मिश्रण ₹43.5 प्रति kg की दर से बेच दिया। उसकी हानि (₹ में) ज्ञात कीजिए।

(1) **20 ✔**

(2) 15

(3) 28

(4) 25

Q.89 A man loses 15% by selling an article for ₹153. If he sells it for ₹189, what will be his gain/loss percentage?

एक व्यक्ति एक वस्तु को ₹153 में बेचने पर 15% की हानि उठाता है। यदि वह इसे ₹189 में बेचता है, तो उसका लाभ/हानि प्रतिशत क्या होगा?

(1) **Gain, 5% / लाभ, 5% ✔**

(2) Gain, 2% / लाभ, 2%

(3) Loss, 2% / हानि, 2%

(4) Loss, 7% / हानि, 7%

Q.90 Two numbers p and q are in the ratio 11 : 18. If the product of their LCM and HCF is 16038, what is the value of (2p + q)/8?

दो संख्याएँ p और q, 11 : 18 के अनुपात में हैं। यदि उनके LCM और HCF का गुणनफल 16038 है, तो (2p + q)/8 का मान क्या है?

(1) 35

(2) **45 ✔**

(3) 40

(4) 47

QuickSarkari.com | WhatsApp Channel | Telegram: t.me/quick_sarkari

Q.91 Study the following table showing the Expenditures of a Company (in Lakh Rupees) per annum over the given years, and answer the question based on it.
Item of Expenditure Year Salary Fuel and Transport Bonus Interest on Loans Taxes 2011 380 92 3.5 47.5 106 2012 254 132 1.43 47.5 50 2013 328 96 1.09 20.3 60 2014 294 142 4.7 38.7 112 2015 372 116 1.52 35.8 108
Total expenditure of the company in 2011 was approximately what percentage of the total expenditure in 2015?

दी गई वर्षों में एक कंपनी के प्रति वर्ष व्यय (लाख रुपये में) को दर्शाने वाली निम्नलिखित तालिका का अध्ययन करें और उसके आधार पर प्रश्न का उत्तर दें।
व्यय की मदवर्ष वेतन ईंधन और परिवहन बोनस ऋणों पर ब्याज कर 2011 380 92 3.5 47.5 106 2012 254 132 1.43 47.5 50 2013 328 96 1.09 20.3 60 2014 294 142 4.7 38.7 112 2015 372 116 1.52 35.8 108 2011 में कंपनी का कुल व्यय, 2015 में कुल व्यय का लगभग कितना प्रतिशत था?

(1) 78.78%
(2) 109.32%
(3) **99.32%** ✔
(4) 89.45%

Q.92 Simplify: 19 × (10 − 1) + (48/12)

सरल कीजिए: 19 × (10 − 1) + (48/12)

(1) 184
(2) **175** ✔
(3) 165
(4) 183

Q.93 The number of prime numbers between 408 and 417 is:

408 और 417 के बीच अभाज्य संख्याओं की संख्या है:

(1) **1** ✔
(2) 2
(3) 0
(4) 3

Q.94 Sam has a monthly salary of ₹80,000. He spends ₹20,000 on household items, ₹20,000 on various bills, and ₹5,000 on travel. The rest of his income is saved. What percentage of his salary does he save?

सैम का मासिक वेतन ₹80,000 है। वह घरेलू वस्तुओं पर ₹20,000, विभिन्न बिलों पर ₹20,000 और यात्रा पर ₹5,000 खर्च करता है। उसकी शेष आय की बचत होती है। वह अपने वेतन का कितना प्रतिशत बचाता है?

(1) 42.55%
(2) **43.75%** ✔
(3) 43.10%
(4) 40.25%

Q.95 The H.C.F. and L.C.M. of two numbers are 15 and 900, respectively. If one of the numbers is 60, find the other number.

दो संख्याओं का म.स.प. (H.C.F.) और ल.स.प. (L.C.M.) क्रमशः 15 और 900 हैं। यदि उनमें से एक संख्या 60 है, तो दूसरी संख्या ज्ञात कीजिए।

(1) 180
(2) 210
(3) 195
(4) **225** ✔

Q.96 A certain sum amounts to ₹92,553 at the rate of 57% per annum in 2 years, interest compounded 8-monthly. What will be the amount payable (in ₹, rounded off to the nearest number) on the same sum at the same rate and in the same time, if the interest is compounded yearly?

एक निश्चित राशि 57% वार्षिक दर पर 2 वर्ष में ₹92,553 हो जाती है, जब ब्याज 8-मासिक रूप से संयोजित होता है। यदि ब्याज वार्षिक रूप से संयोजित हो, तो समान राशि पर समान दर से समान समय में देय राशि (₹ में, निकटतम संख्या तक पूर्णांकित) क्या होगी?

(1) 85,859

(2) **86,807** ✔

(3) 87,699

(4) 86,644

Q.97 The average of three numbers is 22. If two numbers are 11 and 21, the third number is:

तीन संख्याओं का औसत 22 है। यदि दो संख्याएँ 11 और 21 हैं, तो तीसरी संख्या है:

(1) **34** ✔

(2) 36

(3) 35

(4) 33

Q.98 The given pie chart shows the expenditure of a family on various items.
Study the pie chart and answer the question that follows.

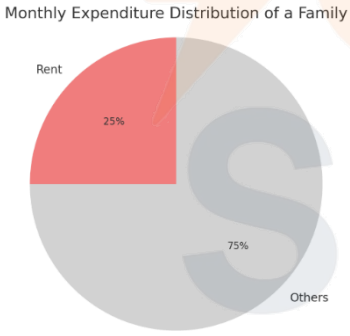

If 25% of the total expenditure is spent on rent and the total monthly expense is ₹40,000, then how much is spent on rent?

दिया गया पाई चार्ट एक परिवार के विभिन्न मदों पर व्यय को दर्शाता है।
पाई चार्ट का अध्ययन करें और उसके बाद दिए गए प्रश्न का उत्तर दें।
यदि कुल व्यय का 25% किराए पर खर्च किया जाता है और कुल मासिक व्यय ₹40,000 है, तो किराए पर कितना खर्च किया जाता है?

(1) ₹12,000

(2) **₹10,000** ✔

(3) ₹15,000

(4) ₹8,000

Q.99 A certain sum amounts to ₹34,560 at the rate of 30% per annum in 2 years, compounded every 8 months. What will be the amount payable (in ₹) on the same sum at the same rate and for the same time if the interest is compounded yearly?

एक निश्चित राशि 30% वार्षिक दर पर 2 वर्ष में ₹34,560 हो जाती है, जब ब्याज प्रत्येक 8 महीने में संयोजित होता है। यदि ब्याज वार्षिक रूप से संयोजित हो, तो समान राशि पर समान दर से समान समय के लिए देय राशि (₹ में) क्या होगी?

(1) 33,800 ✔

(2) 33,700

(3) 33,600

(4) 33,500

Q.100 A can do a work in 11 days and B in 22 days. If they work on it together for 2 days, then what fraction of the work that is left?

A एक कार्य को 11 दिनों में और B उसे 22 दिनों में कर सकता है। यदि वे 2 दिनों तक एक साथ उस पर कार्य करते हैं, तो कार्य का कितना भाग शेष रह जाता है?

(1) 7/11

(2) 8/11 ✔

(3) 3/11

(4) 18/11

Q.101 If a lace has to be put on the sides of the mouth of a triangular box, the mouth measuring 30 cm, 30 cm and 20 cm, as well as the edges of the lid of the box, then the length of the lace required (in cm) will be:

यदि एक त्रिभुजाकार डिब्बे के मुख की भुजाओं पर, जिसकी माप 30 cm, 30 cm और 20 cm है, तथा डिब्बे के ढक्कन के किनारों पर भी एक फीता लगाना हो, तो आवश्यक फीते की लंबाई (cm में) होगी:

(1) 155

(2) 160 ✔

(3) 165

(4) 150

Q.102 Pipes P and Q can fill a tank in 10 hours and 12 hours, respectively, while Pipe R can empty the tank in 24 hours. If all three pipes are opened simultaneously, how long will it take to fill the tank?

पाइप P और Q एक टंकी को क्रमशः 10 घंटे और 12 घंटे में भर सकते हैं, जबकि पाइप R टंकी को 24 घंटे में खाली कर सकता है। यदि तीनों पाइप एक साथ खोल दिए जाएँ, तो टंकी को भरने में कितना समय लगेगा?

(1) 7 2/17 hours / 7 2/17 घंटे

(2) 7 1/17 hours / 7 1/17 घंटे ✔

(3) 7 3/17 hours / 7 3/17 घंटे

(4) 7 4/17 hours / 7 4/17 घंटे

Q.103 If x is directly proportional to y, and y = 2 when x = 92, find the value of x, when y = 13.

यदि x, y के अनुक्रमानुपाती है, और x = 92 होने पर y = 2 है, तो y = 13 होने पर x का मान ज्ञात कीजिए।

(1) 588

(2) 608

(3) 618

(4) 598 ✔

Q.104 If the radius and height of a cone are both increased by 20%, what is the percentage increase in its volume?

यदि एक शंकु की त्रिज्या और ऊँचाई दोनों में 20% की वृद्धि की जाए, तो उसके आयतन में कितने प्रतिशत की वृद्धि होगी?

(1) 100%

(2) 80.8%

(3) 72.8% ✔

(4) 90%

Q.105 A wholesaler offers a discount of 25% on every item and offers a scheme discount of "Buy 4, Get 1 Free" on items marked for ₹800 each. A retailer collects 20 items. What is the effective price paid per item?

एक थोक विक्रेता प्रत्येक वस्तु पर 25% की छूट देता है और ₹800 प्रत्येक अंकित मूल्य वाली वस्तुओं पर "4 खरीदें, 1 मुफ्त पाएँ" की योजना छूट देता है। एक खुदरा विक्रेता 20 वस्तुएँ लेता है। प्रति वस्तु भुगतान किया गया प्रभावी मूल्य क्या है?

(1) ₹480 ✔

(2) ₹460

(3) ₹580

(4) ₹520

Q.106 The height of a right circular cylinder is 12.5 cm. If five times the sum of the areas of its two circular faces is thrice the area of the curved surface area, find the radius of its base.

एक लंब वृत्तीय बेलन की ऊँचाई 12.5 cm है। यदि इसके दोनों वृत्ताकार फलकों के क्षेत्रफलों के योग का पाँच गुना, वक्र पृष्ठीय क्षेत्रफल के तीन गुने के बराबर है, तो इसके आधार की त्रिज्या ज्ञात कीजिए।

(1) 7.5 cm ✔

(2) 9.5 cm

(3) 8.5 cm

(4) 6.5 cm

Q.107 A shopkeeper gives two successive discounts on a smartwatch. The marked price of the watch is ₹5,200. The first discount he gives is 15%. If Jay pays ₹3,536 for purchasing the watch, then what is the second discount?

एक दुकानदार एक स्मार्टवॉच पर दो क्रमिक छूट देता है। घड़ी का अंकित मूल्य ₹5,200 है। वह जो पहली छूट देता है वह 15% है। यदि जय घड़ी खरीदने के लिए ₹3,536 का भुगतान करता है, तो दूसरी छूट कितनी है?

(1) 20% ✔

(2) 21%

(3) 24%

(4) 22%

Q.108 The ratio of the salaries of Raman, Giri and Kashi is 5 : 7 : 8. If their salaries are increased by 40%, 50% and 75%, respectively, then what will be the ratio of their new salaries?

रमन, गिरि और काशी के वेतनों का अनुपात 5 : 7 : 8 है। यदि उनके वेतनों में क्रमशः 40%, 50% और 75% की वृद्धि की जाए, तो उनके नए वेतनों का अनुपात क्या होगा?

(1) 7 : 3 : 4

(2) 3 : 5 : 4

(3) 2 : 3 : 7

(4) 2 : 3 : 4 ✔

Q.109 If x is inversely proportional to y, and y = 7 when x = 9, find the value of x, when y = 67.

यदि x, y के व्युत्क्रमानुपाती है, और x = 9 होने पर y = 7 है, तो y = 67 होने पर x का मान ज्ञात कीजिए।

(1) 63/67 ✔

(2) 57/70

(3) 70/57

(4) 67/63

Q.110 A metallic conical tent has a slant height of 32 meters and a diameter of 48 meters. If both the outside and inside surfaces (excluding the base) are to be painted, and the cost of painting is ₹15 per square meter, what is the total cost of painting the tent? (π=3.14)

एक धात्विक शंक्वाकार तंबू की तिर्यक ऊँचाई 32 मीटर और व्यास 48 मीटर है। यदि बाहरी और भीतरी दोनों पृष्ठों (आधार को छोड़कर) को पेंट किया जाना है, और पेंटिंग की लागत ₹15 प्रति वर्ग मीटर है, तो तंबू को पेंट करने की कुल लागत क्या है? (π=3.14)

(1) ₹72,345.60 ✔

(2) ₹72,800.60

(3) ₹62,800.60

(4) ₹62,300.60

Q.111 The sum of three dimensions of a rectangular box is 16 cm, and the total surface area is 192 sq.cm. What is the maximum length (in cm) of the stick that can be placed inside the box?

एक आयताकार डिब्बे की तीनों विमाओं का योग 16 cm है, और कुल पृष्ठीय क्षेत्रफल 192 वर्ग cm है। डिब्बे के अंदर रखी जा सकने वाली छड़ी की अधिकतम लंबाई (cm में) क्या है?

(1) 4√3

(2) 4

(3) 8 ✔

(4) 5√2

Q.112 A tap fills a cistern in 33 hours. Another tap empties the full tank in 66 hours. How long (in hours) will it take to fill one- third of the tank, if the tank is empty initially and both the taps are opened together?

एक नल किसी टंकी को 33 घंटे में भरता है। दूसरा नल भरी हुई टंकी को 66 घंटे में खाली कर देता है। यदि टंकी प्रारंभ में खाली है और दोनों नल एक साथ खोल दिए जाते हैं, तो टंकी का एक-तिहाई भाग भरने में कितना समय (घंटों में) लगेगा?

(1) 66

(2) 22 ✔

(3) 88

(4) 44

Q.113 A boat's speed in still water is 10 km/hr. The speed of the stream is 2 km/hr. What is the downstream speed?

शांत जल में एक नाव की चाल 10 km/hr है। धारा की चाल 2 km/hr है। धारा के अनुकूल चाल क्या है?

(1) 8 km/hr

(2) 12 km/hr ✔

(3) 14 km/hr

(4) 10 km/hr

Q.114 A cylinder has a height of 18 cm and a radius of 5 cm. If the radius is increased by 40% and the height is decreased by 20%, what is the percentage change in the volume of the cylinder?

एक बेलन की ऊँचाई 18 cm और त्रिज्या 5 cm है। यदि त्रिज्या में 40% की वृद्धि की जाए और ऊँचाई में 20% की कमी की जाए, तो बेलन के आयतन में कितने प्रतिशत का परिवर्तन होगा?

(1) Increase 56.8% / वृद्धि 56.8% ✔

(2) Increase 48.5% / वृद्धि 48.5%

(3) Decrease 56.8% / कमी 56.8%

(4) Decrease 48.5% / कमी 48.5%

Q.115 The marked price of a mobile phone is ₹20,600. A man bought the phone for ₹13,905, after getting two successive discounts, the first at 25%. What was the second discount?

एक मोबाइल फोन का अंकित मूल्य ₹20,600 है। एक व्यक्ति ने दो क्रमिक छूट प्राप्त करने के बाद, जिनमें पहली छूट 25% थी, फोन ₹13,905 में खरीदा। दूसरी छूट कितनी थी?

(1) 10% ✔

(2) 8%

(3) 9%

(4) 12%

Q.116 A toy is in the form of a cone of radius 10 cm, mounted on a hemisphere of the same radius. The total height of the toy is 34 cm. Find the total surface area (in cm^2, rounded to the nearest integer) of the toy. (Use π = 22/7)

एक खिलौना 10 cm त्रिज्या वाले एक शंकु के आकार का है, जो समान त्रिज्या वाले एक अर्धगोले पर आरोपित है। खिलौने की कुल ऊँचाई 34 cm है। खिलौने का कुल पृष्ठीय क्षेत्रफल (cm^2 में, निकटतम पूर्णांक तक पूर्णांकित) ज्ञात कीजिए। (π = 22/7 का प्रयोग करें)

(1) 1476

(2) 1498

(3) 1446 ✔

(4) 1424

Q.117 If 14.7 : x :: x : 7.5, and x > 0, then find the value of x.

यदि 14.7 : x :: x : 7.5, और x > 0 है, तो x का मान ज्ञात कीजिए।

(1) 9.2

(2) 10.6

(3) 13.7

(4) 10.5 ✔

Q.118 A field is 35 m long and 27 m broad. In one corner of the field, a pit which is 12 m long, 9 m broad and 9 m deep has been dug out. The earth taken out of it is evenly spread over the remaining part of the field. Find the rise in the level of the field.

एक मैदान 35 m लंबा और 27 m चौड़ा है। मैदान के एक कोने में 12 m लंबा, 9 m चौड़ा और 9 m गहरा एक गड्ढा खोदा गया है। उसमें से निकाली गई मिट्टी को मैदान के शेष भाग पर समान रूप से फैला दिया जाता है। मैदान के स्तर में वृद्धि ज्ञात कीजिए।

(1) 1.12 m (Approx.) / 1.12 m (लगभग)

(2) 1.14 m (Approx.) / 1.14 m (लगभग)

(3) 1.02 m (Approx.) / 1.02 m (लगभग)

(4) 1.16 m (Approx.) / 1.16 m (लगभग) ✔

QuickSarkari.com | WhatsApp Channel | Telegram: t.me/quick_sarkari

Q.119 Abhay travels 688 km at 86 km/h, the next 164 km at 41 km/h and the next 546 km at 78 km/h. What is his average speed (in km/h) for the whole journey?(Rounded off to two decimal places.)

अभय 688 km की दूरी 86 km/h की चाल से, अगली 164 km की दूरी 41 km/h की चाल से और अगली 546 km की दूरी 78 km/h की चाल से तय करता है। पूरी यात्रा के लिए उसकी औसत चाल (km/h में) क्या है? (दो दशमलव स्थानों तक पूर्णांकित।)

(1) 66.18

(2) 76.72

(3) 74.55

(4) 73.58 ✔

English Language and Comprehension

Q.120 The following sentence is given in direct speech. Choose the correct sentence that expresses the same meaning in indirect speech:

Raman said, "I am preparing for the exams."

(1) Raman said that he prepares for the exams.

(2) Raman said that he is preparing for the exams.

(3) Raman said that he was preparing for the exams. ✔

(4) Raman said that I was preparing for the exams.

Q.121 In the given question, a statement divided into different segments is given. The first segment is fixed. Rearrange the other segments to form a coherent statement.

Language evolves continuously, P) and shifting power dynamics Q) across historical periods R) shaped by cultural exchange S) technological innovation

(1) SQRP

(2) RSPQ ✔

(3) PSQR

(4) QRSP

Q.122 Choose the option that expresses the given sentence in active voice.

It was brought to the attention of the authorities by the children that the cafeteria food had deteriorated in quality.

(1) The children were bringing the attention of the authorities to the deteriorating cafeteria food.

(2) The children brought to the authorities' attention that the cafeteria food had deteriorated in quality. ✔

(3) That the cafeteria food had deteriorated in quality was informed to the authorities by the children.

(4) The authorities brought it to the children's attention that the cafeteria food had deteriorated in quality.

Q.123 A sentence is given in Active voice. Out of the four alternatives given, select the one which best expresses the same sentence in Passive voice.

The management is educating the employees about the customer's behaviour.

(1) The employees were educated about the customer's behaviour by the management.

(2) The employees are being educated about the customer's behaviour by the management. ✔

(3) The employees are educated about the customer's behaviour by the management

(4) The employees were being educated about the customer's behaviour by the management.

Q.124 Select the correct option to complete the given sentence:
The scientist's groundbreaking research sought to ..... the underlying mechanisms of cellular regeneration.

(1) obfuscate
(2) discern ✔
(3) aggregate
(4) misrepresent

Q.125 In the following sentence, replace the highlighted phrase with the most appropriate one-word substitution.
The leader was praised for his inspiring intense loyalty and devotion among followers.

(1) gravitas
(2) charisma ✔
(3) dominance
(4) magnetism

Q.126 Choose the most appropriate option to convert the following sentence from passive to active voice.
The final report will be reviewed by the audit committee before publication.

(1) The audit committee reviewed the final report before publication
(2) The audit committee will review the final report before publication. ✔
(3) The audit committee is reviewing the final report before publication.
(4) The audit committee will have reviewed the final report before publication.

Q.127 Fill in the blanks with the most appropriate option.
In _____ landmark judgment of Justice K.S. Puttaswamy (Retd.) v. Union of India (2017), the Supreme Court recognized _____ right to privacy as a fundamental right under Article 21.

(1) an, the
(2) a, the
(3) the, the ✔
(4) the, an

Q.128 Choose the appropriate article from the options to complete the sentence.
Many facts in _____ newspaper were misrepresented.

(1) No article required
(2) the ✔
(3) a
(4) an

Q.129 Fill in the blank.
Many Mughal Kings were fond _____ architecture.

(1) on
(2) of ✔
(3) for
(4) at

Q.130 Select the most appropriate option to fill in the given blank.
Direct: She said, "I will help you tomorrow."
Indirect: She said that she _____.

(1) can help me tomorrow
(2) will help me tomorrow
(3) should help me the next day
(4) **would help me the next day ✔**

Q.131 Parts of a sentence are given below in jumbled order. Arrange the parts in the correct order to form a meaningful sentence.
A. despite significant challenges
B. renewable energy technologies
C. continue to advance
D. in developing countries

(1) BCAD
(2) **ABCD ✔**
(3) CBAD
(4) BACD

Q.132 In the given question, a statement divided into different segments is given. The first segment is fixed, rearrange the other segments to form a coherent statement.
The professor, known for his eccentric theories
(A) students by connecting seemingly
(B) unrelated concepts through elaborate
(C) on quantum mechanics, often bewildered
(D) analogies involving time, space, and
(E) the perception of consciousness

(1) **CABDE ✔**
(2) DBCEA
(3) BDCAE
(4) BDEAC

Q.133 Words of a sentence are given below in jumbled order. Arrange the words in the correct order to form a meaningful sentence.
was / the / concert / last / amazing / night

(1) **The concert was amazing last night. ✔**
(2) Concert was the last amazing night.
(3) The last night was amazing concert.
(4) Was amazing concert the last night.

Q.134 Select the option that can be used as a one-word substitute for the underlined group of words.
The habitual delay in doing things or paying debts can severely damage one's reputation and credit score.

(1) default
(2) indolence
(3) diligence
(4) **procrastination ✔**

Q.135 Select the most appropriate option which can be used to fill the given blank.
One who can speak many languages is known as a _____.

(1) linguist
(2) bilingual
(3) translator
(4) **polyglot ✔**

Q.136 Select the appropriate option to complete the sentence.
She explained that since the research project involved multiple stages, the committee _____ to approve each stage before moving forward.

(1) will need
(2) **would need ✔**
(3) shall need
(4) had needed

Q.137 Select the option that best completes the sentence:
The old house stood, a silent sentinel, isolated _____ the vast, empty field.

(1) to
(2) at
(3) amid
(4) **in ✔**

Q.138 In the following sentence, replace the highlighted phrase with the most appropriate one-word substitution.
The CEO was admired for his calm and composed demeanour in moments of extreme crisis.

(1) stoicism
(2) **equanimity ✔**
(3) poise
(4) forbearance

Q.139 Complete the sentence by selecting the appropriate word from the options.
Despite the strong currents, the experienced captain _____ steered the ship through the narrow channel.

(1) randomly
(2) accidentally
(3) rarely
(4) **skillfully ✔**

Q.140 Identify the antonym of the underlined word in the given sentence.
The chef was so expert in cooking that he made all dishes effortlessly.

(1) meticulously
(2) relentlessly
(3) easily
(4) **arduously ✔**

QuickSarkari.com | WhatsApp Channel | Telegram: t.me/quick_sarkari

Q.141 Select the sentence which has the INCORRECTLY spelt word.

(1) The committee's recommendation was implemented without further deliberation.

(2) The government's decision was criticised for its lack of transparency.

(3) **The GPS gave an acurrate location of the destination. ✔**

(4) Charities often provide assistance to bereaved families in times of need.

Q.142 Select the most appropriate idiom that can substitute the underlined segment in the given sentence.
Although she knew her colleague was wrong, she decided not to confront him, choosing instead to avoid unnecessary conflict.

(1) don’t bite the hand that feeds you

(2) fools rush in where angels fear to tread

(3) make hay while the sun shines

(4) **discretion is the better part of valour ✔**

Q.143 Select the most appropriate phrase that can substitute the underlined segment in the given sentence.
She was excited about the new job opportunity, but she got suddenly nervous when it was time to sign the contract.

(1) under the weather

(2) bite the bullet

(3) **cold feet ✔**

(4) snowed under

Q.144 Identify the INCORRECTLY spelt word from the highlighted words in the given sentence.
Despite his resilience, he found it hard to maintain his enthusiasm after the occassional setbacks that slowed down his progress.

(1) resilience

(2) enthusiasm

(3) **occassional ✔**

(4) progress

Q.145 In the following question, a statement has been given with highlighted text. You are required to replace the text with the correct proverb given in the options.
Even though Mark failed in his first few attempts at writing, he didn't give up because he believed that trying repeatedly would lead to success.

(1) Actions speak louder than words

(2) **If at first you don’t succeed, try, try again ✔**

(3) There is no time like the present

(4) A stitch in time saves nine

Q.146 Choose the most appropriate synonym of the word "tedious" given in the sentence.
The documentation process was tedious.

(1) pleasant

(2) **boring ✔**

(3) brief

(4) swift

Q.147 Choose the most appropriate antonym of the highlighted word.
The committee found the candidate's proposal to be entirely germane to the ongoing discussion regarding institutional restructuring.

(1) Irrelevant ✔
(2) Pertinent
(3) Congruous
(4) Ambiguous

Q.148 Read the following sentence carefully and choose the best suited alternative for the idiom given in bold.
After years of financial mismanagement, the company was on its last legs and about to declare bankruptcy.

(1) near collapse ✔
(2) expanding globally
(3) increasing its profits
(4) strong and stable

Q.149 Identify the antonym of the underlined word in the sentence:
The general's cavalier attitude toward the soldiers' concerns only deepened the division between them.

(1) respectful ✔
(2) careful
(3) unconcerned
(4) dismissive

Q.150 What broader message does the passage convey about fuel price hikes?

(1) Fuel price increases affect only transportation industries.
(2) Wars influence only military activities and not economies.
(3) Governments cannot take any significant measures to control fuel-related problems.
(4) Fuel crises reveal economic, political, and environmental challenges simultaneously. ✔

Q.151 What measure did some governments take to provide temporary relief from rising fuel prices?

(1) Closed public transportation
(2) Banned international trade
(3) Increased fuel taxes
(4) Reduced taxes on fuel ✔

Q.152 What can be inferred about countries that rely heavily on fossil fuels?

(1) They may become economically vulnerable during international conflicts. ✔
(2) They experience no effect on transportation systems in modern times.
(3) They are completely protected from the current global crises.
(4) They no longer require renewable energy sources during daytime.

Q.153 Select the ANTONYM of the following word.
Uncertain

(1) Vulgar
(2) Doubtful
(3) Courteous
(4) Definite ✔

Q.154 Select the central theme of this passage.

(1) The history of crude oil production and its distribution in local markets

(2) The growing concern in the decline of renewable energy industries

(3) **The relationship between war, fuel prices, and global economic dependence ✔**

(4) The cultural impact of international trade in the modern world

Q.155 What is the tone of the passage?

(1) Narrative and descriptive

(2) **Analytical and theoretical ✔**

(3) Humorous and informal

(4) Celebratory and devotional

Q.156 Which of the following is a fact mentioned in the passage?

(1) **Mimicry is described as strategic repetition with difference ✔**

(2) Hybridity means complete cultural separation

(3) Bhabha rejects all postcolonial theory

(4) Third space eliminates all cultural negotiation

Q.157 What is the central theme of the passage?

(1) Biography of Homi Bhabha's personal life

(2) **Bhabha's theoretical contribution to postcolonial identity ✔**

(3) Rapid industrial and economic globalization in South-Eastern Asia

(4) Military history of colonial resistance in 20th Century

Q.158 Which modern issue best reflects Bhabha's concept of hybridity?

(1) Isolation of traditional rural societies in Asia

(2) Decline of multilingual societies amid modernisation

(3) Complete elimination of cultural exchange

(4) **Cultural mixing in global migration communities ✔**

Q.159 The word "liminality" in the passage is closest in meaning to:

(1) stability

(2) centrality

(3) rigidity

(4) **marginality ✔**

Hindi Language and Comprehension

Q.160 निम्नलिखित वाक्य में उचित क्रिया विशेषण का प्रयोग कर के वाक्य पूर्ण करें - ये जामुन _____ पके हैं ।

(1) रूखे

(2) अनोखे

(3) सूखे

(4) **अच्छे ✔**

Q.161 रेखांकित शब्द के पर्यायवाची हेतु उचित विकल्प चयनित करें ।
तिमिर घना होता जा रहा है

(1) दिन
(2) अंधकार
(3) **उजाला ✔**
(4) सबेरा

Q.162 उपयुक्त विशेषण का चयनकर निम्नलिखित वाक्य को पूर्ण कीजिए।
'सुमन के पास ..... मोबाईल फोन है'।

(1) **दो ✔**
(2) दूना
(3) द्वितीय
(4) तिगुना

Q.163 निम्नांकित विकल्पों में से उचित विशेषण का चयन करके वाक्य पूर्ण करें- अच्छे विचार .....होकर महान कार्यों में बदल जाते हैं।

(1) बड़े
(2) फैलकर
(3) पैदा
(4) **अंकुरित ✔**

Q.164 सर्वोचित कारक शब्द से वाक्य का रिक्त स्थान पूर्ण करें।
पुलिस ने चोर को लाठी___मारा।

(1) की
(2) का
(3) पर
(4) **से ✔**

Q.165 उपयुक्त 'क्रिया' का चयन कर दिए गए वाक्य को पूर्ण कीजिए।
'.टीचर बच्चों से सुलेख .....हैं।'

(1) करवाते
(2) उठवाते
(3) दिलवाते
(4) **लिखवाते ✔**

Q.166 'विपरीत क्रम में चलनेवाला' वाक्यांश के लिए सार्थक शब्द क्या होगा?

(1) वीरुध
(2) **विलोमक ✔**
(3) वीरेंद्र
(4) विशारद

Q.167 निम्नलिखित वाक्य के रिक्त स्थान को भरने के लिए उपयुक्त परसर्ग का चयन करें।
भाग्य से भारत ऐसे स्थान पर स्थित है जहाँ प्रकृति अपने दान ----------मुक्तहस्त रही है और जहाँ के प्राकृतिक दृश्य मनोरम हैं।

(1) को
(2) से
(3) **में ✔**
(4) पर

Q.168 निम्नलिखित वाक्यों में से सही क्रम वाले वाक्य का चयन कीजिए-

(1) स्वतंत्र न्यायपालिका और सशक्त नागरिक समाज पर निर्भर करती है लोकतांत्रिक व्यवस्था की सफलता।

(2) निर्भर करती है लोकतांत्रिक व्यवस्था की सफलता स्वतंत्र न्यायपालिका और सशक्त नागरिक समाज पर।

(3) लोकतांत्रिक व्यवस्था की सफलता स्वतंत्र न्यायपालिका और सशक्त नागरिक समाज पर निर्भर करती है। ✔

(4) लोकतांत्रिक व्यवस्था की सफलता निर्भर करती है स्वतंत्र न्यायपालिका और सशक्त नागरिक समाज पर।

Q.169 'कार _____ से बढ़ गई।' वाक्य पूर्ण करने के लिए उचित क्रिया-विशेषण शब्द चुनें।

(1) अलबत्ता

(2) सुन्दर

(3) अचानक ✔

(4) प्रत्युत

Q.170 दिए गए वाक्यों के लिखने का सही क्रम क्या है?

1. 1930 ई. के आसपास राष्ट्रीय स्वाधीनता आंदोलन में नया उभार आया।
2. उधर रूस में समाजवादी राज्य की स्थापना हो चुकी थी।
3. इधर देश में किसानों और मजदूरों के आंदोलन तेज हो गए थे।
4. ऐसी स्थिति में ही साहित्य में प्रगतिशील चेतना का प्रादुर्भाव हुआ।

(1) 1243

(2) 1432

(3) 4132

(4) 1324 ✔

Q.171 'बहुत बढ़ा-चढ़ाकर कही गई बात' वाक्यांश के लिए एक शब्द कौन-सा सही शब्द है?

(1) लक्षणा

(2) व्यंजना

(3) अतिशयोक्ति ✔

(4) उपमा

Q.172 'अलग-अलग अवयवों को एक में जोड़ना' वाक्यांश के लिए सार्थक शब्द है-

(1) संश्लेषण ✔

(2) शाक्त

(3) सत्याग्रह

(4) सामूहिक

Q.173 निम्नलिखित वाक्य को उचित कारक द्वारा पूर्ण करें।

इस चश्में ___ पानी ___ बूंदें हैं।

(1) हेतु,ने

(2) का,से

(3) पर,की ✔

(4) से,का

Q.174 उपयुक्त क्रिया-विशेषण का प्रयोग कर दिये गये वाक्य को पूर्ण कीजिए- 'रणजीत को कुत्ते ने..... काट लिया।'

(1) सांझ-सबेरे

(2) चुपके से ✔

(3) हाथों-हाथ

(4) जब-तब

Q.175 निम्नांकित विकल्पों में से उचित कारक चिह्न का चयन करके वाक्य पूर्ण करें- इस रोग ..... मनुष्य बहुत कमजोर हो जाता है।

(1) में ✔

(2) ने

(3) के

(4) को

Q.176 विशेषण पद का प्रयोग करके वाक्य पूर्ण करें।

राजा ने _____ सैनिकों को युद्ध में भेजा।

(1) रणकुशल ✔

(2) कमजोर

(3) अशांत

(4) आलसी

Q.177 दिए गए वाक्यों में से शुद्ध वाक्य का चयन कीजिए।

(1) उस व्यक्ति में कुछ उतम गुण हैं।

(2) स्वच्छ जल स्वास्थ्य के लिए आवश्यक है। ✔

(3) मेरे चित में क्षोभ है।

(4) भोजन के बाद मठ्ठा पीना चाहिए।

Q.178 नीचे दिए गए किस वाक्य में 'उन्मूलन' का विलोम प्रयुक्त हुआ है?

(1) वह इस बार परीक्षा में उत्तीर्ण न हो सका।

(2) वह हमारे साथ चलने के लिए इच्छुक है।

(3) पर्यावरण को ध्यान में रखते हुए सरकार को वृक्ष रोपण की योजना बनानी चाहिए। ✔

(4) शहर में हर ओर गड्ढे ही गड्ढे हैं।

Q.179 उपयुक्त संयुक्त क्रिया के प्रयोग से वाक्य को पूरा कीजिए- राम _____ ।

(1) चला

(2) चलता है

(3) चलने लगा ✔

(4) चलेगा

Q.180 दिये गये वाक्य के किस भाग में त्रुटि है?

मैं सप्ताहिक पत्रिका के लिए इस पुस्तकालय में जाता हूँ।

(1) में जाता हूँ

(2) मैं सप्ताहिक ✔

(3) पत्रिका के लिए

(4) इस पुस्तकालय

Q.181 निम्नलिखित मुहावरे का अर्थ बताएं - 'उलटे पाँव लौटना'

(1) काम निकालना

(2) निराश लौटना ✔

(3) मूर्ख बनाना

(4) कुछ घटकर होना

Q.182 निम्नलिखित वाक्यों में किस वाक्य में वर्तनी की अशुद्धि है?

(1) पढ़ाई में अनुशासन और निरंतरता सफलता की कुंजी मानी जाती है।

(2) तकनीकी प्रगति ने दुनिया को छोटा बना दिया है और संचार को तुरंत संभव कर दिया है।

(3) धैर्य रखने वाला व्यक्ति परीस्थितियों को अपने अनुकूल बदलने मे सक्षम होता है। ✔

(4) दूसरों की मदद करने से जो आनंद मिलता है वह किसी भी भौतिक सुख से बड़ा होता है।

Q.183 निम्नलिखित में से किस लोकोक्ति का अर्थ संगत नहीं है?

(1) ऊँट के मुंह में जीरा - ना कोई लेना ना देना ✔

(2) आठ कन्नौजिये नौ चूल्हे - अलगाव होना

(3) एक पंथ दो काज - एक कार्य से दोहरा लाभ

(4) आँख का अंधा गाँठ का पूरा - बुद्धिहीन किंतु संपन्न

Q.184 'घर की आग नहीं दिखती, टीले पर की दिख जाती है' लोकोक्ति का सही अर्थ होगा -

(1) घर की आधी रोटी बाहर की पूरी रोटी से अच्छी होती है

(2) घर की लड़ाई घर में ही समाप्त कर लेनी चाहिए बाहर बताने से हंसी होती है

(3) जब अपने ही लोग क्षति पहुंचाना शुरू कर देंगे तो रक्षा करना मुश्किल हो जाएगा

(4) अपने और अपनों के दोष दिखाई नहीं देते और दूसरों के तुरंत दिखाई पड़ जाते हैं ✔

Q.185 निम्नलिखित किस वाक्य में वर्तनी की अशुद्धि नहीं है?

(1) अहंकार के कारण ही अनेक महान व्यक्तियों का पतन हुआ है।

(2) विद्या धन से बड़ी है क्योंकि इसे कोई चूरा नहीं सकता।

(3) संकट की घड़ी में मनुष्य का असली चरित्र सामने आता है। ✔

(4) मेहनतकश हाथ ही दैश की असली शक्ति और पहचान होते हैं।

Q.186 'पराया सिर कद्दू बराबर' लोकोक्ति का सही अर्थ होगा -

(1) बड़ों की मांग भी बड़ी होती है

(2) नाम तो बड़ा पर काम कुछ नहीं

(3) दूसरे के माल की परवाह न करना ✔

(4) किसी के मन की बात जानना कठिन है

Q.187 'घर में भूंजी भाँग नहीं मियाँ चले हज्ज करने' लोकोक्ति का सही अर्थ होगा -

(1) किसी वस्तु का उपयोग न स्वयं करना न दूसरों को करने देना

(2) पास धन न होने पर भी किसी बड़े काम का मंसूबा बांधना ✔

(3) कोई मूर्खता करने पर घर में हानि होती है लेकिन बाहर हंसी होती है

(4) किसी की मूल आवश्यकता पूरा न करके केवल दिखावा करना

Q.188 नीचे दी गई लोकोक्ति का अर्थ बताइए अस्सी की आमद चौरासी का खर्च।

(1) आमदनी से ज्यादा खर्चा होना ✔

(2) अचानक बहुत पैसा आ जाना

(3) बचत करना

(4) आमदनी के अनुसार खर्च करना

Q.189 दिये गये वाक्य के किस भाग में त्रुटि है?
महर्षि वाल्मीकी की तपस्या और साहित्य साधना ने उन्हें भारतीय संस्कृति का अमर पुरुष बना दिया।

(1) और साहित्य साधना ने
(2) महर्षि वाल्मीकी की तपस्या ✔
(3) का अमर पुरुष बना
(4) उन्हें भारतीय संस्कृति

Q.190 उपर्युक्त गद्यांश के आधार पर निम्नलिखित में से सबसे उपयुक्त शीर्षक का चयन करें।

(1) विश्व में शांति और सद्भावना का विकास
(2) राष्ट्रीय भाषाओं का संरक्षण
(3) साहित्यिक प्रतियोगिता का महत्त्व
(4) अनुवाद का महत्त्व और वैश्विक संपर्क ✔

Q.191 उपर्युक्त गद्यांश का केन्द्रीय विषय क्या है?

(1) वैज्ञानिक और तकनीकी खोजों का महत्त्व
(2) राष्ट्र और विश्व में शिक्षा का प्रसार
(3) अनुवाद के माध्यम से वैश्विक ज्ञान और संस्कृति का आदान प्रदान ✔
(4) भाषाओं को सीखने की आवश्यकता

Q.192 उपर्युक्त गद्यांश के अनुसार अनुवाद के कारण संपूर्ण विश्व में किसका प्रसार नहीं हो रहा है?

(1) सेवा
(2) अखंडता ✔
(3) प्रेम
(4) मैत्री

Q.193 उपर्युक्त गद्यांश में आए शब्द 'प्राचीन' का पर्यायवाची इनमें से कौन सा शब्द नहीं है?

(1) नवीन ✔
(2) पुरातन
(3) चिरंतन
(4) आदिकालीन

Q.194 उपर्युक्त गद्यांश में आए शब्द 'विकसित' का विलोम शब्द बताइए।

(1) निर्मित
(2) अविकसित ✔
(3) स्थिर
(4) विनिर्माण

Q.195 उपर्युक्त गद्यांश का उपयुक्त शीर्षक क्या होगा?

(1) दुःख
(2) सात्विक प्रवृत्ति
(3) लज्जा और ग्लानि ✔
(4) क्रोध

QuickSarkari.com | WhatsApp Channel | Telegram: t.me/quick_sarkari

Q.196 भय नामक मनोविकार किन लोगों को बुराई से बचाता है?

(1) दुःखी वृत्ति वालों को

(2) तामसी वृत्ति वालों को ✔

(3) सात्विक वृत्ति वालों को

(4) राजसी वृत्ति वालों को

Q.197 जिनके हृदय में न लज्जा होती है, न ग्लानि वे किस वृत्ति से बुरा काम करने में हिचकते हैं?

(1) आशंका से

(2) निर्लज्जता से

(3) भय से ✔

(4) दुःख से

Q.198 आशंका से कौन-सा भाव उत्पन्न हो सकता है?

(1) लज्जा ✔

(2) क्रोध

(3) कुकर्म

(4) भय

Q.199 'ग्लानि' का पर्यायवाची शब्द है-

(1) पश्चात्ताप ✔

(2) प्रपंच

(3) गिरफ्तार

(4) परिधान

Answer Key / उत्तर कुंजी

1 1	2 2	3 2	4 3	5 2	6 3	7 3	8 1	9 2	10 2	11 1	12 4	13 3	14 3	15 1
16 3	17 4	18 3	19 2	20 4	21 2	22 4	23 2	24 3	25 3	26 2	27 3	28 3	29 1	30 3
31 4	32 4	33 1	34 4	35 3	36 1	37 4	38 4	39 2	40 1	41 2	42 2	43 3	44 3	45 1
46 4	47 2	48 4	49 1	50 3	51 2	52 1	53 2	54 4	55 2	56 4	57 3	58 1	59 4	60 2
61 4	62 4	63 2	64 3	65 2	66 1	67 1	68 3	69 2	70 4	71 4	72 2	73 3	74 3	75 4
76 3	77 1	78 1	79 2	80 2	81 2	82 1	83 1	84 2	85 3	86 2	87 3	88 1	89 1	90 2
91 3	92 2	93 1	94 2	95 4	96 2	97 1	98 2	99 1	100 2	101 2	102 2	103 4	104 3	105 1
106 1	107 1	108 4	109 1	110 1	111 3	112 2	113 2	114 1	115 1	116 3	117 4	118 4	119 4	120 3
121 2	122 2	123 2	124 2	125 2	126 2	127 3	128 2	129 2	130 4	131 2	132 1	133 1	134 4	135 4
136 2	137 4	138 2	139 4	140 4	141 3	142 4	143 3	144 3	145 2	146 2	147 1	148 1	149 1	150 4
151 4	152 1	153 4	154 3	155 2	156 1	157 2	158 4	159 4	160 4	161 3	162 1	163 4	164 4	165 4

166 2	**167** 3	**168** 3	**169** 3	**170** 4	**171** 3	**172** 1	**173** 3	**174** 2	**175** 1	**176** 1	**177** 2	**178** 3	**179** 3	**180** 2
181 2	**182** 3	**183** 1	**184** 4	**185** 3	**186** 3	**187** 2	**188** 1	**189** 2	**190** 4	**191** 3	**192** 2	**193** 1	**194** 2	**195** 3
196 2	**197** 3	**198** 1	**199** 1											

QuickSarkari

Quick Sarkari

Thank you for studying with QuickSarkari!

Get the latest Sarkari Naukri notifications, admit cards, results, answer keys and free previous-year papers first - follow us on WhatsApp and Telegram.

Visit www.quicksarkari.com

Join our WhatsApp Channel

https://whatsapp.com/channel/0029VaxxbrREquiPoXTWM229

Join our Telegram Channel

https://t.me/quick_sarkari

Share this PDF with your friends preparing for DSSSB exams.