DSSSB PREVIOUS YEAR PAPER WITH ANSWER KEY

DSSSB Assistant Superintendent

2 July 2026 · Shift 3

डीएसएसएसबी सहायक अधीक्षक – 2 जुलाई 2026, शिफ्ट 3 का प्रश्न पत्र, उत्तर कुंजी सहित

200	120 min	1 / −0.25	EN + HI
Questions / प्रश्न	Duration / समय	Marks per Q / अंक	Language / भाषा

Sections: General Intelligence and Reasoning Ability, General Awareness, Arithmetical and Numerical Ability, English Language and Comprehension, Hindi Language and Comprehension

INSIDE THIS PDF / इस PDF में

Question Paper in English + Hindi with Answer Key (correct option marked in green) + answer table Page 2–42
प्रश्न पत्र अंग्रेज़ी + हिंदी में, उत्तर कुंजी सहित (सही विकल्प हरे रंग में) + उत्तर तालिका

HOW TO USE THIS PAPER / इस पेपर का उपयोग कैसे करें

1. Attempt the paper first as a timed online mock test (link below).
   पहले नीचे दिए लिंक से इसे टाइमर के साथ ऑनलाइन मॉक टेस्ट के रूप में हल करें।
2. Check your score, section-wise analysis and solutions online.
   ऑनलाइन अपना स्कोर, खंड-वार विश्लेषण और हल देखें।
3. Use this PDF for revision. Correct answers are shown in green.
   दोहराने के लिए इस PDF का उपयोग करें। सही उत्तर हरे रंग में दिए गए हैं।

Attempt this paper as a FREE online mock test

इस पेपर को फ्री ऑनलाइन मॉक टेस्ट के रूप में हल करें – टाइमर, स्कोर और हल के साथ

https://quicksarkari.com/dsssb-assistant-superintendent-02-july-2026-shift-3-mock-test/

All DSSSB Assistant Superintendent papers and mock tests: **quicksarkari.com/dsssb-mock-test/#assistant-superintendent**

Join WhatsApp Channel | Join Telegram Channel

DSSSB Assistant Superintendent – Question Paper (English + Hindi)

DSSSB सहायक अधीक्षक – प्रश्न पत्र (अंग्रेज़ी + हिंदी)

Exam held on 2 July 2026, Shift 3 · 200 questions · correct answers marked ✔ in green
परीक्षा तिथि 2 जुलाई 2026, शिफ्ट 3 · 200 प्रश्न · सही उत्तर हरे रंग में ✔ से चिह्नित

> The official paper for this shift was in English. The Hindi version of each question is a translation prepared by QuickSarkari; the language-section questions are shown as asked.
> इस शिफ्ट का आधिकारिक प्रश्न पत्र अंग्रेज़ी में था। प्रत्येक प्रश्न का हिंदी संस्करण QuickSarkari द्वारा तैयार किया गया अनुवाद है; भाषा खंड के प्रश्न मूल रूप में दिए गए हैं।

General Intelligence and Reasoning Ability

Q.1 Refer to the following number and symbol series and answer the question. Counting to be done from left to right only. (All numbers are single digit numbers)
(Left) 1 * & > & \ \ / / $ < * < 7 > > 1 / 6 1 > (Right)
How many such symbols are there each of which is immediately preceded by a number and also immediately followed by a number?

निम्नलिखित संख्या और प्रतीक श्रृंखला को देखें और प्रश्न का उत्तर दें। गणना केवल बाएँ से दाएँ की जानी है।
(सभी संख्याएँ एक अंक वाली संख्याएँ हैं)
(बाएँ) 1 * & > & \ \ / / $ < * < 7 > > 1 / 6 1 > (दाएँ)
ऐसे कितने प्रतीक हैं जिनमें से प्रत्येक के ठीक पहले एक संख्या है और ठीक बाद भी एक संख्या है?

(1) Four / चार
(2) Two / दो
(3) Three / तीन
(4) One / एक ✔

Q.2 Refer to the following letter and symbol series and answer the question that follows. Counting to be done from left to right only.
(Left) A J $ J P © % & B N N % B P % P € F W % J € (Right)
How many such symbols are there that are immediately preceded by a letter and also immediately followed by a letter?

निम्नलिखित अक्षर और प्रतीक श्रृंखला को देखें और आगे दिए गए प्रश्न का उत्तर दें। गणना केवल बाएँ से दाएँ की जानी है।
(बाएँ) A J $ J P © % & B N N % B P % P € F W % J € (दाएँ)
ऐसे कितने प्रतीक हैं जिनके ठीक पहले एक अक्षर है और ठीक बाद भी एक अक्षर है?

(1) Seven / सात
(2) Six / छह
(3) Four / चार
(4) Five / पाँच ✔

Q.3 Refer to the following letter series and answer the question that follows.
(Left) L M Q A S E J N I R U T C F X K P Z W G B (Right)
How many letters are there in the English alphabetical series between the letter which is fourth from the right end and the one that is fifth from the left end of the series?
निम्नलिखित अक्षर श्रृंखला को देखें और आगे दिए गए प्रश्न का उत्तर दें।
(बाएँ) L M Q A S E J N I R U T C F X K P Z W G B (दाएँ)
अंग्रेज़ी वर्णमाला श्रृंखला में, श्रृंखला के दाएँ छोर से चौथे अक्षर और बाएँ छोर से पाँचवें अक्षर के बीच कितने अक्षर हैं?

(1) Six / छह ✔
(2) Seven / सात
(3) Five / पाँच
(4) Eight / आठ

Q.4 Which of the following letter clusters should replace # and % so that the pattern and relationship followed between the letter-cluster pair on the left side of :: is the same as that on the right side of ::?
: LTN :: PXR : %
निम्नलिखित में से कौन-से अक्षर-समूह # और % को प्रतिस्थापित करने चाहिए ताकि :: के बाईं ओर के अक्षर-समूह युग्म के बीच जो पैटर्न और संबंध है, वही :: के दाईं ओर के अक्षर-समूह युग्म के बीच भी हो?
: LTN :: PXR : %

(1) # = MUP, % = OWQ
(2) # = MUO, % = OVQ
(3) # = MUO, % = OWQ ✔
(4) # = MUO, % = OWR

Q.5 Refer to the given number series and answer the question that follows. Counting to be done from left to right only. All numbers are single-digit numbers.
(Left) 5 9 7 1 5 4 6 3 7 8 4 9 3 6 1 2 4 8 6 7 4 8 1 9 4 6 5 (Right)
How many such odd numbers are there, each of which is immediately followed by an odd number and also immediately preceded by an even number?
दी गई संख्या श्रृंखला को देखें और आगे दिए गए प्रश्न का उत्तर दें। गणना केवल बाएँ से दाएँ की जानी है। सभी संख्याएँ एक अंक वाली संख्याएँ हैं।
(बाएँ) 5 9 7 1 5 4 6 3 7 8 4 9 3 6 1 2 4 8 6 7 4 8 1 9 4 6 5 (दाएँ)
ऐसी कितनी विषम संख्याएँ हैं, जिनमें से प्रत्येक के ठीक बाद एक विषम संख्या है और ठीक पहले एक सम संख्या है?

(1) Two / दो
(2) Three / तीन ✔
(3) More than three / तीन से अधिक
(4) One / एक

Q.6 In a certain code language, '&-S+' is coded as 'LIAR' and '+-&O' is coded as 'JAIL'. What is the code for 'O' in that language?
एक निश्चित कूट भाषा में, '&-S+' को 'LIAR' के रूप में कूटबद्ध किया जाता है और '+-&O' को 'JAIL' के रूप में कूटबद्ध किया जाता है। उसी भाषा में 'O' के लिए कूट क्या है?

(1) L
(2) A
(3) J ✔
(4) I

Q.7 In a certain code language, 'TYRE' is coded as '6793' and 'PREY' is coded as '9783'. What is the code for 'P' in the given code language?

एक निश्चित कूट भाषा में, 'TYRE' को '6793' के रूप में कूटबद्ध किया जाता है और 'PREY' को '9783' के रूप में कूटबद्ध किया जाता है। दी गई कूट भाषा में 'P' के लिए कूट क्या है?

(1) 8 ✔

(2) 9

(3) 7

(4) 3

Q.8 I, J, K, S, T and U live on six different floors of the same building. The lowermost floor of the building is numbered 1, the floor immediately above it is numbered 2, and so on till the topmost floor is numbered 6. I lives on floor number 5. S lives on a floor above I. Only K lives below U. T lives on an even-numbered floor. How many persons live below J?

I, J, K, S, T और U एक ही इमारत के छह अलग-अलग तलों पर रहते हैं। इमारत के सबसे निचले तल का क्रमांक 1 है, उसके ठीक ऊपर वाले तल का क्रमांक 2 है, और इसी प्रकार सबसे ऊपर वाले तल का क्रमांक 6 है। I तल क्रमांक 5 पर रहता है। S, I के ऊपर किसी तल पर रहता है। U के नीचे केवल K रहता है। T सम क्रमांक वाले किसी तल पर रहता है। J के नीचे कितने व्यक्ति रहते हैं?

(1) 4

(2) 2 ✔

(3) 1

(4) 3

Q.9 Which of the following letter clusters should replace # and % so that the pattern and relationship followed between the letter-cluster pair on the left side of :: is the same as that on the right side of :: ?
: MSO :: DJF : %

निम्नलिखित में से कौन-से अक्षर-समूह # और % को प्रतिस्थापित करने चाहिए ताकि :: के बाईं ओर के अक्षर-समूह युग्म के बीच जो पैटर्न और संबंध है, वही :: के दाईं ओर के अक्षर-समूह युग्म के बीच भी हो?
: MSO :: DJF : %

(1) # = LNO , % = HLI

(2) # = LRN , % = EKG ✔

(3) # = KPN , % = HMI

(4) # = KPO , % = EFL

Q.10 Select the option that is related to the fifth letter-cluster in the same way as the second letter-cluster is related to the first letter-cluster and the fourth letter-cluster is related to the third letter-cluster.
WABE : DEZAYZVW :: FJKN : UVQRPQMN :: PTUX : ?

उस विकल्प का चयन करें जो पाँचवें अक्षर-समूह से उसी प्रकार संबंधित है, जिस प्रकार दूसरा अक्षर-समूह पहले अक्षर-समूह से संबंधित है और चौथा अक्षर-समूह तीसरे अक्षर-समूह से संबंधित है।
WABE : DEZAYZVW :: FJKN : UVQRPQMN :: PTUX : ?

(1) KMGHFDCD

(2) KLGIFGCE

(3) KLGHFGCD ✔

(4) KLGIFHCD

Q.11 All the individual letters in the word IMPLODE are arranged in the English alphabetical order. How many letters are there in the English alphabetical order between the letter that is third from the left and the one that is fourth from the right in the new letter cluster thus formed?

शब्द IMPLODE के सभी अक्षरों को अंग्रेज़ी वर्णमाला के क्रम में व्यवस्थित किया जाता है। इस प्रकार बने नए अक्षर-समूह में बाएँ से तीसरे अक्षर और दाएँ से चौथे अक्षर के बीच अंग्रेज़ी वर्णमाला क्रम में कितने अक्षर हैं?

(1) One / एक
(2) Four / चार
(3) **Two / दो ✔**
(4) Three / तीन

Q.12 All the individual letters in the word NIGHTLY are arranged in the English alphabetical order. How many letters are there in the English alphabetical order between the letter that is second from the left and the one that is fourth from the right in the new letter cluster thus formed?

शब्द NIGHTLY के सभी अक्षरों को अंग्रेज़ी वर्णमाला के क्रम में व्यवस्थित किया जाता है। इस प्रकार बने नए अक्षर-समूह में बाएँ से दूसरे अक्षर और दाएँ से चौथे अक्षर के बीच अंग्रेज़ी वर्णमाला क्रम में कितने अक्षर हैं?

(1) One / एक
(2) Two / दो
(3) Four / चार
(4) **Three / तीन ✔**

Q.13 Q is the only son of P. P is the sister of R. R is married to C. C is the father of B. R is the daughter of S. S is married to T. T is the only sister of A. How is Q related to T?

Q, P का एकमात्र पुत्र है। P, R की बहन है। R का विवाह C से हुआ है। C, B का पिता है। R, S की पुत्री है। S का विवाह T से हुआ है। T, A की एकमात्र बहन है। Q का T से क्या संबंध है?

(1) Mother's father / माता का पिता
(2) Mother's sister / माता की बहन
(3) **Daughter's son / पुत्री का पुत्र ✔**
(4) Daughter's daughter / पुत्री की पुत्री

Q.14 In a certain code language, '2L1%' is coded as 'BUNT' and '12M%' is coded as 'NUTS'. What is the code for 'M' in that language?

एक निश्चित कूट भाषा में, '2L1%' को 'BUNT' के रूप में कूटबद्ध किया जाता है और '12M%' को 'NUTS' के रूप में कूटबद्ध किया जाता है। उसी भाषा में 'M' के लिए कूट क्या है?

(1) N
(2) T
(3) U
(4) **S ✔**

Q.15 E, F, G, M, N and O live on six different floors of the same building. The lowermost floor of the building is numbered 1, the floor immediately above it is numbered 2, and so on till the topmost floor is numbered 6. N lives on floor number 4. Only two persons live between N and F. Only E lives between N and G. O lives immediately below N.
Who lives on floor number 2?

E, F, G, M, N और O एक ही इमारत के छह अलग-अलग तलों पर रहते हैं। इमारत के सबसे नीचे वाले तल का क्रमांक 1 है, उसके ठीक ऊपर वाले तल का क्रमांक 2 है और इसी प्रकार सबसे ऊपर वाले तल का क्रमांक 6 है।
N तल क्रमांक 4 पर रहता है। N और F के बीच केवल दो व्यक्ति रहते हैं। N और G के बीच केवल E रहता है। O, N के ठीक नीचे रहता है।
तल क्रमांक 2 पर कौन रहता है?

(1) M ✔
(2) O
(3) E
(4) G

Q.16 Six persons, A, B, C, D, E and F, are sitting in a row, facing north. C sits third to the left of F. A sits second to the left of D. A sits to the immediate right of B. E sits to the immediate left of C. A is the nearest neighbour of F. How many persons sit between D and B?

छह व्यक्ति, A, B, C, D, E और F, उत्तर की ओर अभिमुख होकर एक पंक्ति में बैठे हैं। C, F के बाएँ तीसरे स्थान पर बैठा है। A, D के बाएँ दूसरे स्थान पर बैठा है। A, B के ठीक दाएँ पड़ोस में बैठा है। E, C के ठीक बाएँ पड़ोस में बैठा है। A, F का निकटतम पड़ोसी है। D और B के बीच कितने व्यक्ति बैठे हैं?

(1) One / एक
(2) Two / दो ✔
(3) Three / तीन
(4) None / एक भी नहीं

Q.17 A, B, C, D, E, F and G are sitting around a circular table, facing the centre. Only two people sit between C and B when counted from the right of C. Only two people sit between B and E when counted from the left of E. Only three people sit between C and F when counted from the right of C. A sits to the immediate left of D. How many people sit between D and F when counted from the left of F?

A, B, C, D, E, F और G एक गोल मेज के परितः उसके केंद्र की ओर अभिमुख होकर बैठे हैं। C के दाईं ओर से गिनने पर C और B के बीच केवल दो व्यक्ति बैठे हैं। E के बाईं ओर से गिनने पर B और E के बीच केवल दो व्यक्ति बैठे हैं। C के दाईं ओर से गिनने पर C और F के बीच केवल तीन व्यक्ति बैठे हैं। A, D के ठीक बाईं ओर पड़ोस में बैठा है। F के बाईं ओर से गिनने पर D और F के बीच कितने व्यक्ति बैठे हैं?

(1) 4
(2) 3
(3) 2
(4) 1 ✔

Q.18 Refer to the following number and symbol series and answer the question that follows. (All numbers are single-digit numbers only.)
(Left) 9 * & ^ 7 # 5 @ 4 1 2 + ? $ 2 9 8 # 2 (Right)
If all the symbols are dropped from the series, which of the following will be the seventh from the right?
निम्नलिखित संख्या और प्रतीक श्रृंखला को देखें और आगे दिए गए प्रश्न का उत्तर दें। (सभी संख्याएँ केवल एक अंक वाली संख्याएँ हैं।)
(बाएँ) 9 * & ^ 7 # 5 @ 4 1 2 + ? $ 2 9 8 # 2 (दाएँ)
यदि श्रृंखला से सभी प्रतीक हटा दिए जाएँ, तो निम्नलिखित में से कौन-सा दाएँ से सातवाँ होगा?

(1) 5
(2) 9
(3) 4 ✔
(4) 7

Q.19 F, G, H, J, K and L live on six different floors of the same building. The lowermost floor of the building is numbered 1, the floor above it is numbered 2, and so on till the topmost floor is numbered 6. F lives on an even-numbered floor but not on floor number 4. Only two people live between F and J. H lives on an odd-numbered floor but not on the lowermost floor. Only two people live between H and L. K lives immediately below H. How many people live between G and K
F, G, H, J, K और L एक ही इमारत के छह अलग-अलग तलों पर रहते हैं। इमारत में सबसे निचले तल का क्रमांक 1 है, उसके ऊपर के तल का क्रमांक 2 है और इसी तरह सबसे ऊपरी तल का क्रमांक 6 है। F सम संख्या वाले तल पर रहता है लेकिन तल क्रमांक 4 पर नहीं रहता है। F और J के बीच केवल दो लोग रहते हैं। H विषम संख्या वाले तल पर रहता है लेकिन सबसे निचले तल पर नहीं रहता है। H और L के बीच केवल दो लोग रहते हैं। K, H के ठीक नीचे रहता है। G और K के बीच कितने लोग रहते हैं

(1) Four / चार
(2) Three / तीन
(3) Two / दो ✔
(4) One / एक

Q.20 Each of K, L, M, N and O has an exam on a different day of the same week, starting from Monday and ending on Friday.
K has the exam on Thursday. Only two persons have exams between K and N. L has the exam on one of the days after M and before K.
How many persons have exams between N and O?
K, L, M, N और O में से प्रत्येक की परीक्षा सोमवार से शुरू होकर शुक्रवार को समाप्त होने वाले उसी सप्ताह के अलग-अलग दिनों में होती है।
K की परीक्षा गुरुवार को है। K और N के बीच केवल दो व्यक्तियों की परीक्षा है। L की परीक्षा M के बाद और K से पहले किसी एक दिन है।
N और O के बीच कितने व्यक्तियों की परीक्षा है?

(1) Three / तीन ✔
(2) None / एक भी नहीं
(3) One / एक
(4) Two / दो

Q.21 Which of the following letter clusters will replace the question mark (?) in the given series to make it logically complete? ENX 6 HPT -1 KRP -10 NTL -21 ?
निम्नलिखित में से कौन-सा अक्षर-समूह दी गई श्रृंखला में प्रश्न चिह्न (?) को प्रतिस्थापित करके उसे तार्किक रूप से पूर्ण करेगा?
ENX 6 HPT -1 KRP -10 NTL -21 ?

(1) QVH -34 ✔
(2) LUH -36
(3) PYH -32
(4) PQB - 43

Q.22 Select the set in which the numbers are related in the same way as are the numbers of the following sets.
(NOTE : Operations should be performed on the whole numbers, without breaking down the numbers into its constituent digits. E.g. 13 – Operations on 13 such as adding / subtracting /multiplying etc. to 13 can be performed. Breaking down 13 into 1 and 3 and then performing mathematical operations on 1 and 3 is not allowed)
(384,12,8)
(448,14,8)

उस समुच्चय का चयन करें जिसकी संख्याएँ उसी प्रकार संबंधित हैं जिस प्रकार निम्नलिखित समुच्चयों की संख्याएँ संबंधित हैं।
(नोट : संक्रियाएँ संख्याओं को उनके घटक अंकों में तोड़े बिना, पूर्ण संख्याओं पर की जानी चाहिए। उदाहरण के लिए 13 – 13 पर संक्रियाएँ जैसे 13 में जोड़ना / घटाना / गुणा करना आदि की जा सकती हैं। 13 को 1 और 3 में तोड़ना और फिर 1 और 3 पर गणितीय संक्रियाएँ करना वर्जित है)
(384,12,8)
(448,14,8)

(1) (420,15,7) ✔
(2) (380,15,6)
(3) (446,14,8)
(4) (390,18,5)

Q.23 Select the pair that follows the same pattern as the one followed by the two sets of pairs given below. Both pairs follow the same pattern.
GNQ : IPS FPM : HRO

उस युग्म का चयन करें जो उसी पैटर्न का अनुसरण करता है जिसका अनुसरण नीचे दिए गए युग्मों के दो समुच्चय करते हैं। दोनों युग्म एक ही पैटर्न का अनुसरण करते हैं।
GNQ : IPS FPM : HRO

(1) SMO : UOP
(2) JOP : LQR ✔
(3) NSX : PTZ
(4) KVF : MYH

Q.24 In the following number-pairs, the second number is obtained by applying certain mathematical operations to the first number. Select the set in which the numbers are related in the same way as are the numbers of the following sets.
(NOTE : Operations should be performed on the whole numbers, without breaking down the numbers into its constituent digits. E.g. 13 – Operations on 13 such as adding / subtracting /multiplying etc. to 13 can be performed. Breaking down 13 into 1 and 3 and then performing mathematical operations on 1 and 3 is not allowed)
250, 135 225, 110

निम्नलिखित संख्या-युग्मों में, पहली संख्या पर कुछ निश्चित गणितीय संक्रियाएँ करके दूसरी संख्या प्राप्त की जाती है। उस समुच्चय का चयन करें जिसकी संख्याएँ उसी प्रकार संबंधित हैं जिस प्रकार निम्नलिखित समुच्चयों की संख्याएँ संबंधित हैं।
(नोट : संक्रियाएँ संख्याओं को उनके घटक अंकों में तोड़े बिना, पूर्ण संख्याओं पर की जानी चाहिए। उदाहरण के लिए 13 – 13 पर संक्रियाएँ जैसे 13 में जोड़ना / घटाना / गुणा करना आदि की जा सकती हैं। 13 को 1 और 3 में तोड़ना और फिर 1 और 3 पर गणितीय संक्रियाएँ करना वर्जित है)
250, 135 225, 110

(1) 275, 160 ✔
(2) 190, 70
(3) 170, 45
(4) 205, 95

Q.25 Select the option figure in which the given figure (X) is embedded as its part (rotation is NOT allowed).

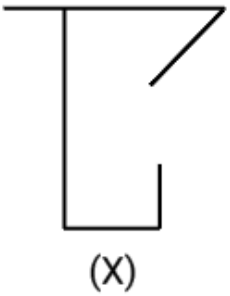

(X)

उस विकल्प आकृति का चयन करें जिसमें दी गई आकृति (X) उसके भाग के रूप में निहित है (घुमाने की अनुमति नहीं है)।

(1) 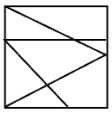

(2) 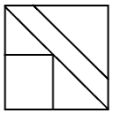

(3) 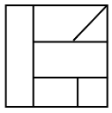 ✔

(4) 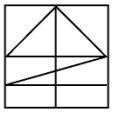

Q.26 What should come in place of the question mark (?) in the given series?

8 49 246 985 2956 ?

दी गई श्रृंखला में प्रश्न चिह्न (?) के स्थान पर क्या आना चाहिए?

8 49 246 985 2956 ?

(1) 5913 ✔

(2) 5912

(3) 5910

(4) 5911

Q.27 122 is related to 51 following a certain logic. Following the same logic, 72 is related to 26. To which of the following is 96 related, following the same logic?

(NOTE: Operations should be performed on the whole numbers, without breaking down the numbers into their constituent digits. E.g. 13 – Operations on 13 such as adding/ subtracting /multiplying to 13 can be performed. Breaking down 13 into 1 and 3 and then performing mathematical operations on 1 and 3 is not allowed.)

एक निश्चित तर्क का अनुसरण करते हुए 122, 51 से संबंधित है। उसी तर्क का अनुसरण करते हुए 72, 26 से संबंधित है। उसी तर्क का अनुसरण करते हुए 96 निम्नलिखित में से किससे संबंधित है?

(नोट: संक्रियाएँ संख्याओं को उनके घटक अंकों में तोड़े बिना, पूर्ण संख्याओं पर की जानी चाहिए। उदाहरण के लिए 13 – 13 पर संक्रियाएँ जैसे 13 में जोड़ना/घटाना/गुणा करना आदि की जा सकती हैं। 13 को 1 और 3 में तोड़ना और फिर 1 और 3 पर गणितीय संक्रियाएँ करना वर्जित है।)

(1) 51

(2) 46

(3) 42

(4) 38 ✔

QuickSarkari.com | WhatsApp Channel | Telegram: t.me/quick_sarkari

Q.28 17 is related to 37.4 following a certain logic. Following the same logic, 41 is related to 90.2. Which of the given options is 62 related to, following the same logic?
(Note: Operations should be performed on the whole numbers, without breaking down the numbers into their constituent digits. E.g. 13 – Operations on 13 such as adding/subtracting/multiplying to 13 can be performed. Breaking down 13 into 1 and 3 and then performing mathematical operations on 1 and 3 is not allowed.)

एक निश्चित तर्क का अनुसरण करते हुए 17, 37.4 से संबंधित है। उसी तर्क का अनुसरण करते हुए 41, 90.2 से संबंधित है। उसी तर्क का अनुसरण करते हुए 62 दिए गए विकल्पों में से किससे संबंधित है?
(नोट: संक्रियाएँ संख्याओं को उनके घटक अंकों में तोड़े बिना, पूर्ण संख्याओं पर की जानी चाहिए। उदाहरण के लिए 13 – 13 पर संक्रियाएँ जैसे 13 में जोड़ना/घटाना/गुणा करना आदि की जा सकती हैं। 13 को 1 और 3 में तोड़ना और फिर 1 और 3 पर गणितीय संक्रियाएँ करना वर्जित है।)

(1) 136.4 ✔
(2) 137.8
(3) 131.2
(4) 134.9

Q.29 Based on the English alphabetical order, three of the following four letter cluster pairs are alike in a certain way and thus form a group. Which is the one that does not belong to that group?
(Note: The odd man out is not based on the number of consonants/vowels or their position in the letter cluster.)

अंग्रेज़ी वर्णमाला क्रम के आधार पर, निम्नलिखित चार अक्षर-समूह युग्मों में से तीन किसी निश्चित प्रकार से एकसमान हैं और इस प्रकार एक समूह बनाते हैं। वह कौन-सा युग्म है जो उस समूह से संबंधित नहीं है?
(नोट: असंगत युग्म, अक्षर-समूह में व्यंजनों/स्वरों की संख्या या उनके स्थान पर आधारित नहीं है।)

(1) PR-TV
(2) SU-WY
(3) CE-GI
(4) EG-IL ✔

Q.30 What should come in place of the question mark (?) in the given series based on the English alphabetical order? CTH LCQ ULZ DUI ?

अंग्रेज़ी वर्णमाला क्रम के आधार पर दी गई श्रृंखला में प्रश्न चिह्न (?) के स्थान पर क्या आना चाहिए?
CTH LCQ ULZ DUI ?

(1) MRT
(2) MRD
(3) MDR ✔
(4) MID

Q.31 If 1 is added to each odd digit and 2 is subtracted from each even digit in the number 5731864, how many digits will appear more than once in the new number thus formed?

यदि संख्या 5731864 के प्रत्येक विषम अंक में 1 जोड़ा जाए और प्रत्येक सम अंक में से 2 घटाया जाए, तो इस प्रकार बनी नई संख्या में कितने अंक एक से अधिक बार आएंगे?

(1) 4
(2) 1
(3) 2
(4) 3 ✔

Q.32 If 'A' stands for '÷', 'B' stands for '×', 'C' stands for '+' and 'D' stands for '−', what will come in place of the question mark (?) in the following equation?
25 B 39 A 5 D 35 C 47 = ?
यदि 'A' का अर्थ '÷', 'B' का अर्थ '×', 'C' का अर्थ '+' और 'D' का अर्थ '−' है, तो निम्नलिखित समीकरण में प्रश्न चिह्न (?) के स्थान पर क्या आएगा?
25 B 39 A 5 D 35 C 47 = ?

(1) 209
(2) 208
(3) **207** ✔
(4) 205

Q.33 Which of the following letter-number clusters will replace the question mark (?) in the given series to make it logically complete?
FLR 95, AGM 86, VBH 77, QWC 68, LRX 59, ?
निम्नलिखित में से कौन-सा अक्षर-संख्या समूह दी गई श्रृंखला में प्रश्न चिह्न (?) को प्रतिस्थापित करके उसे तार्किक रूप से पूर्ण करेगा?
FLR 95, AGM 86, VBH 77, QWC 68, LRX 59, ?

(1) **GMS 50** ✔
(2) UMS 50
(3) GNS 50
(4) GMS 51

Q.34 What should come in place of the question mark (?) in the given series?
120 85 155 50 190 ?
दी गई श्रृंखला में प्रश्न चिह्न (?) के स्थान पर क्या आना चाहिए?
120 85 155 50 190 ?

(1) 30
(2) **15** ✔
(3) 25
(4) 20

Q.35 What should come in place of the question mark (?) in the given series?
2, 4, 16, 256, ?
दी गई श्रृंखला में प्रश्न चिह्न (?) के स्थान पर क्या आना चाहिए?
2, 4, 16, 256, ?

(1) 65534
(2) 65533
(3) 65535
(4) **65536** ✔

QuickSarkari.com | WhatsApp Channel | Telegram: t.me/quick_sarkari

Q.36 Identify the figure given in the options which when put in place of the question mark (?) will logically complete the series.

@QR%$E	E@QR%$	$E@QR%	%$E@QR	?

विकल्पों में दी गई उस आकृति की पहचान करें जिसे प्रश्न चिह्न (?) के स्थान पर रखने पर श्रृंखला तार्किक रूप से पूर्ण हो जाएगी।

(1) $RE@Q%

(2) R$%E@Q

(3) RQ@E$%

(4) R%$ E@Q ✔

Q.37 If 'A' stands for '÷', 'B' stands for '×', 'C' stands for '+' and 'D' stands for '−', then what will come in place of the question mark (?) in the following equation?

9 A 3 B 50 C 8 D 9 = ?

यदि 'A' का अर्थ '÷', 'B' का अर्थ '×', 'C' का अर्थ '+' और 'D' का अर्थ '−' है, तो निम्नलिखित समीकरण में प्रश्न चिह्न (?) के स्थान पर क्या आएगा?

9 A 3 B 50 C 8 D 9 = ?

(1) 147

(2) **149** ✔

(3) 151

(4) 148

Q.38 Which of the following letter-number clusters will replace the question mark (?) in the given series to make it logically complete?

QU16, PT23, OS30, NR37, ?

निम्नलिखित में से कौन-सा अक्षर-संख्या समूह दी गई श्रृंखला में प्रश्न चिह्न (?) को प्रतिस्थापित करके उसे तार्किक रूप से पूर्ण करेगा?

QU16, PT23, OS30, NR37, ?

(1) MR44

(2) MR45

(3) MQ45

(4) **MQ44** ✔

QuickSarkari.com | WhatsApp Channel | Telegram: t.me/quick_sarkari

Q.39 If 'A' stands for '×', 'B' stands for '÷', 'C' stands for '+', and 'D' stands for '−', then the resultant of which of the following would be 20?

यदि 'A' का अर्थ '×', 'B' का अर्थ '÷', 'C' का अर्थ '+' और 'D' का अर्थ '−' है, तो निम्नलिखित में से किसका परिणाम 20 होगा?

(1) 10 D 2 C 4 A 6 B 2 ✔

(2) 10 B 2 D 4 A 2 C 6

(3) 10 A 2 B 4 C 6 D 2

(4) 10 C 2 A 4 B 2 D 6

Q.40 Each of the digits in the number 9318246 is arranged in descending order from left to right. Which of the following digits will be fifth from the right?

संख्या 9318246 के प्रत्येक अंक को बाएँ से दाएँ अवरोही क्रम में व्यवस्थित किया जाता है। निम्नलिखित में से कौन-सा अंक दाएँ से पाँचवाँ होगा?

(1) 6 ✔

(2) 4

(3) 8

(4) 3

General Awareness

Q.41 What did one of the military tactics of the Marathas involve?

मराठों की एक सैन्य युक्ति (military tactics) में क्या शामिल था?

(1) Naval strikes / नौसैनिक प्रहार

(2) Siege strategy / घेराबंदी रणनीति

(3) Guerrilla warfare / गुरिल्ला युद्ध ✔

(4) Heavy infantry / भारी पैदल सेना

Q.42 Which of the following leaders founded the Hindu Relief Movement?

निम्नलिखित में से किस नेता ने हिंदू राहत आंदोलन (Hindu Relief Movement) की स्थापना की थी?

(1) Madan Lal Dhingra / मदन लाल ढींगरा

(2) Motilal Nehru / मोतीलाल नेहरू

(3) Mahatma Gandhi / महात्मा गांधी

(4) Lala Lajpat Rai / लाला लाजपत राय ✔

Q.43 What portion of the area of the Lower Ganga Plain lies 30 metres below the mean sea level?

निम्न गंगा मैदान के क्षेत्र का कितना भाग, औसत समुद्र तल से 30 मीटर नीचे है?

(1) Half / आधा

(2) Two-thirds / दो-तिहाई ✔

(3) Three-fourths / तीन-चौथाई

(4) One-third / एक-तिहाई

Q.44 Which of the following bodies was established by an executive resolution of the Government of India, and not directly by a provision of the Indian Constitution?

निम्नलिखित में से कौन-सा निकाय भारतीय संविधान के किसी प्रावधान द्वारा प्रत्यक्ष रूप से नहीं, बल्कि भारत सरकार के एक कार्यकारी संकल्प द्वारा स्थापित किया गया था?

(1) Union Public Service Commission / संघ लोक सेवा आयोग

(2) Finance Commission / वित्त आयोग

(3) Election Commission of India / भारत निर्वाचन आयोग

(4) **Central Vigilance Commission / केंद्रीय सतर्कता आयोग ✔**

Q.45 Which tribal revolt in North-East India began due to opposition to a British road connecting the Brahmaputra Valley with Sylhet?

उत्तर-पूर्वी भारत में कौन-सा जनजातीय विद्रोह, ब्रह्मपुत्र घाटी को सिलहट से जोड़ने वाली एक ब्रिटिश सड़क के विरोध के कारण शुरू हुआ था?

(1) Kol Revolt / कोल विद्रोह

(2) Bhil Revolt / भील विद्रोह

(3) **Jaintia and Garo Revolt / जयंतिया और गारो विद्रोह ✔**

(4) Mappila Revolt / माप्पिला विद्रोह

Q.46 Why are Directive Principles considered a limitation in terms of legal enforcement in India?

भारत में विधिक प्रवर्तन की दृष्टि से नीति निदेशक तत्वों को एक सीमा क्यों माना जाता है?

(1) They are not included in the Constitution. / वे संविधान में शामिल नहीं हैं।

(2) **They are non-justiciable. / वे गैर-न्यायोचित हैं। ✔**

(3) They are written in a vague language. / वे अस्पष्ट भाषा में लिखे गए हैं।

(4) They contradict Fundamental Rights. / वे मौलिक अधिकारों का खंडन करते हैं।

Q.47 The Delhi Sultans of which of the following dynasties were Afghans?

निम्नलिखित में से किस राजवंश के दिल्ली सुल्तान अफगान थे?

(1) Khilji / खिलजी

(2) Slave / ग़ुलाम

(3) Sayyid / सैयद

(4) **Lodi / लोदी ✔**

Q.48 The Purvanchal Hills are located in which part of India?

पूर्वांचल पहाड़ियाँ भारत के किस भाग में स्थित हैं?

(1) Central India / मध्य भारत

(2) Western India / पश्चिमी भारत

(3) Southern India / दक्षिणी भारत

(4) **Northeastern India / पूर्वोत्तर भारत ✔**

Q.49 The 97th Constitutional Amendment relates to which of the following?

97वाँ संविधान संशोधन निम्नलिखित में से किससे संबंधित है?

(1) Anti-Defection Law / दल-बदल विरोधी कानून

(2) Right to Education / शिक्षा का अधिकार

(3) National Judicial Appointments / राष्ट्रीय न्यायिक नियुक्तियाँ

(4) **Cooperative Societies / सहकारी समितियाँ ✔**

Q.50 Who among the following was a founder of the Deccan Education Society?
निम्नलिखित में से कौन डेक्कन एजुकेशन सोसाइटी के संस्थापक थे?

(1) Bal Gangadhar Tilak / बाल गंगाधर तिलक ✔
(2) Mahatma Gandhi / महात्मा गांधी
(3) Bhagat Singh / भगत सिंह
(4) Motilal Nehru / मोतीलाल नेहरू

Q.51 Under which Article of the Indian Constitution does the President of India act on the advice of the Council of Ministers?
भारतीय संविधान के किस अनुच्छेद के अंतर्गत भारत का राष्ट्रपति मंत्रिपरिषद की सलाह पर कार्य करता है?

(1) Article 61 / अनुच्छेद 61
(2) Article 74 / अनुच्छेद 74 ✔
(3) Article 54 / अनुच्छेद 54
(4) Article 52 / अनुच्छेद 52

Q.52 Which of the following ports is known as the "Queen of the Arabian Sea"?
निम्नलिखित में से किस बंदरगाह को "अरब सागर की रानी" के रूप में जाना जाता है?

(1) Jawaharlal Nehru Port (JNPT) / जवाहरलाल नेहरू पोर्ट (JNPT)
(2) Deendayal Port (Kandla) / दीनदयाल पोर्ट (कांडला)
(3) Cochin Port / कोचीन पोर्ट ✔
(4) Mumbai Port / मुंबई पोर्ट

Q.53 What type of vegetation is found above 3,600 metres in Himalayan region?
हिमालयी क्षेत्र में 3,600 मीटर से अधिक ऊँचाई पर किस प्रकार की वनस्पति पाई जाती है?

(1) Mangrove forest / मैंग्रोव वन
(2) Deciduous forest / पर्णपाती वन
(3) Alpine vegetation / अल्पाइन वनस्पति ✔
(4) Thorn forest / कंटीले वन

Q.54 Which of the following tribal leaders is correctly matched with the associated movement?
निम्नलिखित में से कौन-सा जनजातीय नेता संबंधित आंदोलन के साथ सही सुमेलित है?

(1) Rani Gaidinliu – Heraka Movement / रानी गाइदिन्ल्यू – हेराका आंदोलन ✔
(2) Lakshmana Naik – Indigo Revolt / लक्ष्मण नाइक – नील विद्रोह
(3) Tantya Tope – Santhal Rebellion / तात्या टोपे – संथाल विद्रोह
(4) Birsa Munda – Revolt of 1857 / बिरसा मुंडा – 1857 का विद्रोह

Q.55 Which four river valleys in India have the highest coal reserves?
भारत की किन चार नदी घाटियों में सर्वाधिक कोयला भंडार हैं?

(1) Ganga, Yamuna, Brahmaputra, Krishna / गंगा, यमुना, ब्रह्मपुत्र, कृष्णा
(2) Damodar, Sone, Mahanadi, Godavari / दामोदर, सोन, महानदी, गोदावरी ✔
(3) Narmada, Tapti, Mahi, Sabarmati / नर्मदा, ताप्ती, माही, साबरमती
(4) Sutlej, Ravi, Chenab, Beas / सतलुज, रावी, चिनाब, ब्यास

Q.56 In which classical dance form is the tribhanga posture, or triple bend of the body, prominently used?
किस शास्त्रीय नृत्य शैली में त्रिभंग मुद्रा, अर्थात शरीर के तीन मोड़, का प्रमुखता से उपयोग किया जाता है?

(1) Sattriya / सत्रिया
(2) **Odissi / ओडिसी ✔**
(3) Kathak / कथक
(4) Bharatanatyam / भरतनाट्यम

Q.57 In the Medieval era between the 8th and 12th centuries, which of the following dynasties contributed to Bengal's architecture?
8वीं और 12वीं शताब्दी के बीच मध्यकाल में, निम्नलिखित में से किस राजवंश ने बंगाल की वास्तुकला में योगदान दिया?

(1) Gupta Dynasty / गुप्त राजवंश
(2) Chola Dynasty / चोल राजवंश
(3) **Pala Dynasty / पाल राजवंश ✔**
(4) Mauryan Dynasty / मौर्य राजवंश

Q.58 By what process is the Comptroller and Auditor General (CAG) of India appointed?
भारत के नियंत्रक एवं महालेखा परीक्षक (CAG) की नियुक्ति किस प्रक्रिया द्वारा की जाती है?

(1) Appointed by the Chief Justice of India / भारत के मुख्य न्यायाधीश द्वारा नियुक्त
(2) Appointed by the Prime Minister after consultation with Cabinet / मंत्रिमंडल से परामर्श के बाद प्रधानमंत्री द्वारा नियुक्त
(3) **Appointed by the President of India by warrant under his hand and seal / भारत के राष्ट्रपति द्वारा अपने हस्ताक्षर और मुद्रा सहित अधिपत्र द्वारा नियुक्त ✔**
(4) Elected by a simple majority in the Lok Sabha / लोकसभा में साधारण बहुमत द्वारा निर्वाचित

Q.59 What is the longitude value of the Prime Meridian?
प्रधान मध्याह्न रेखा (प्राइम मेरिडियन) का देशांतर मान क्या है?

(1) 180 degrees / 180 डिग्री
(2) **0 degrees / 0 डिग्री ✔**
(3) 90 degrees East / 90 डिग्री पूर्व
(4) 23.5 degrees / 23.5 डिग्री

Q.60 The Maulana Azad National Urdu University (MANUU), a Central University established in 1998 to promote and develop the Urdu language and to impart vocational and technical education in Urdu medium, has its headquarter located in:
मौलाना आज़ाद राष्ट्रीय उर्दू विश्वविद्यालय (MANUU), जो उर्दू भाषा के संवर्धन और विकास तथा उर्दू माध्यम में व्यावसायिक और तकनीकी शिक्षा प्रदान करने के लिए 1998 में स्थापित एक केंद्रीय विश्वविद्यालय है, का मुख्यालय कहाँ स्थित है?

(1) Lucknow / लखनऊ
(2) Bhopal / भोपाल
(3) Patna / पटना
(4) **Hyderabad / हैदराबाद ✔**

Q.61 After gaining independence in 1947, India embarked on a journey of planned economic development, adopting the Five- Year Plans as a central tool for policy direction. Which Five-Year Plan introduced the twin objectives of 'growth with stability' and 'progress towards self-reliance'?

1947 में स्वतंत्रता प्राप्त करने के बाद, भारत ने नीतिगत दिशा के एक केंद्रीय साधन के रूप में पंचवर्षीय योजनाओं को अपनाते हुए नियोजित आर्थिक विकास की यात्रा आरंभ की। किस पंचवर्षीय योजना ने 'स्थिरता के साथ विकास' और 'आत्मनिर्भरता की दिशा में प्रगति' के दोहरे उद्देश्य प्रस्तुत किए?

(1) Sixth / छठी

(2) **Fourth / चौथी ✔**

(3) Fifth / पाँचवीं

(4) Third / तीसरी

Q.62 Which of the following Indian athletes set a new national record in the men's 200m sprint during the Federation Cup 2025?

निम्नलिखित में से किस भारतीय एथलीट ने फेडरेशन कप 2025 के दौरान पुरुषों की 200 मीटर स्प्रिंट में नया राष्ट्रीय रिकॉर्ड बनाया?

(1) Amiya Mallick / अमिय मलिक

(2) Amlan Borgohain / अमलान बोरगोहेन

(3) Gurindervir Singh / गुरिंदरवीर सिंह

(4) **Animesh Kujur / अनिमेष कुजूर ✔**

Q.63 Which country will hold the G7 presidency in 2025 and will host the G7 Leaders' Summit?

कौन-सा देश 2025 में G7 की अध्यक्षता करेगा और G7 नेताओं के शिखर सम्मेलन की मेज़बानी करेगा?

(1) **Canada / कनाडा ✔**

(2) United States / संयुक्त राज्य अमेरिका

(3) United Kingdom / यूनाइटेड किंगडम

(4) France / फ्रांस

Q.64 As of 2025, how many tests has ISRO completed for the Gaganyaan Programme?

2025 तक, ISRO ने गगनयान कार्यक्रम के लिए कितने परीक्षण पूरे कर लिए हैं?

(1) **More than 7,200 technical tests / 7,200 से अधिक तकनीकी परीक्षण ✔**

(2) Around 3,000 crew module trials / लगभग 3,000 क्रू मॉड्यूल परीक्षण

(3) Nearly 6,500 subsystem checks / लगभग 6,500 उप-प्रणाली जाँच

(4) Over 5,000 mission readiness tests / 5,000 से अधिक मिशन तत्परता परीक्षण

Q.65 Who did Pankaj Advani defeat in the final of the 2025 Asian Snooker Championship to secure the men's title?

पंकज आडवाणी ने 2025 एशियाई स्नूकर चैंपियनशिप के फाइनल में किसे हराकर पुरुष खिताब जीता?

(1) **Amir Sarkosh / आमिर सरखोश ✔**

(2) Yuan Sijun / युआन सिजुन

(3) Hammad Murtaza / हम्माद मुर्तज़ा

(4) Mohammed Bilal / मोहम्मद बिलाल

Q.66 According to Newton's Second Law, if the mass of an object is doubled while applying the same force, what happens to its acceleration?

न्यूटन के द्वितीय नियम के अनुसार, यदि समान बल लगाते हुए किसी वस्तु का द्रव्यमान दोगुना कर दिया जाए, तो उसके त्वरण का क्या होगा?

(1) It doubles / यह दोगुना हो जाता है

(2) It becomes zero / यह शून्य हो जाता है

(3) It remains the same / यह समान रहता है

(4) It becomes half / यह आधा हो जाता है ✔

Q.67 Which of the following authorities is concerned with readjusting territorial constituency for the Parliament and State legislature?

निम्नलिखित में से कौन-सा प्राधिकरण संसद और राज्य विधानमंडल के लिए प्रादेशिक निर्वाचन क्षेत्रों के पुनः समायोजन से संबंधित है?

(1) Planning Commission / योजना आयोग

(2) Delimitation Commission / परिसीमन आयोग ✔

(3) Finance Commission / वित्त आयोग

(4) Central Vigilance Commission / केंद्रीय सतर्कता आयोग

Q.68 Which joint NASA-ISRO Earth observation mission, set for launch in June 2025, will be the first to use dual-frequency synthetic aperture radar to monitor Earth's land and ice surfaces?

जून 2025 में प्रक्षेपण के लिए निर्धारित कौन-सा संयुक्त NASA-ISRO पृथ्वी अवलोकन मिशन, पृथ्वी की भूमि और बर्फ की सतहों की निगरानी के लिए दोहरी आवृत्ति वाले सिंथेटिक एपर्चर रडार का उपयोग करने वाला पहला मिशन होगा?

(1) Aditya-L1 / आदित्य-L1

(2) NISAR ✔

(3) Chandrayaan-4 / चंद्रयान-4

(4) Gaganyaan-1 / गगनयान-1

Q.69 What is the full form of the FRBM Act passed in 2003?

2003 में पारित FRBM अधिनियम का पूर्ण रूप क्या है?

(1) Fiscal Responsibility and Budget Management / राजकोषीय उत्तरदायित्व और बजट प्रबंधन ✔

(2) Fiscal Reform and Banking Management / राजकोषीय सुधार और बैंकिंग प्रबंधन

(3) Financial Regulation and Banking Mechanism / वित्तीय विनियमन और बैंकिंग तंत्र

(4) Foreign Reserve and Budget Monitoring / विदेशी भंडार और बजट निगरानी

Q.70 Which city is set to host the 2025 World Athletics Championships, marking its third time hosting the event?

कौन-सा शहर 2025 विश्व एथलेटिक्स चैंपियनशिप की मेज़बानी करने वाला है, जो इस आयोजन की उसकी तीसरी मेज़बानी होगी?

(1) Beijing / बीजिंग

(2) Seoul / सियोल

(3) Tokyo / टोक्यो ✔

(4) Osaka / ओसाका

Q.71 Which national body launched the 'Bharatpol' portal in January 2025 to enhance international police co-operation and streamline access to Interpol databases?

किस राष्ट्रीय निकाय ने अंतर्राष्ट्रीय पुलिस सहयोग को बढ़ाने और इंटरपोल डेटाबेस तक पहुँच को सुव्यवस्थित करने के लिए जनवरी 2025 में 'भारतपोल' पोर्टल लॉन्च किया?

(1) Ministry of Home Affairs (MHA) / गृह मंत्रालय (MHA)

(2) National Investigation Agency (NIA) / राष्ट्रीय अन्वेषण अभिकरण (NIA)

(3) National Crime Records Bureau (NCRB) / राष्ट्रीय अपराध रिकॉर्ड ब्यूरो (NCRB)

(4) Central Bureau of Investigation (CBI) / केंद्रीय अन्वेषण ब्यूरो (CBI) ✔

Q.72 The SI unit of molar specific heat capacity is:

मोलर विशिष्ट ऊष्मा धारिता का SI मात्रक है:

(1) $\mathbf{J\ mol^{-1}\ K}$ **✔**

(2) $J\ mol^{-1}\ K^{-1}$

(3) $J\ mol^{-1}$

(4) J

Q.73 Who were the recipients of the 2025 United Nations Nelson Rolihlahla Mandela Prize?

2025 के संयुक्त राष्ट्र नेल्सन रोलिह्लाहला मंडेला पुरस्कार के प्राप्तकर्ता कौन थे?

(1) Brenda Reynolds, Kennedy Odede / ब्रेंडा रेनॉल्ड्स, केनेडी ओडेडे ✔

(2) Maria Lopez, Ahmed Hassan / मारिया लोपेज़, अहमद हसन

(3) Fatima El-Sayed, Omar Khalid / फ़ातिमा अल-सैयद, उमर ख़ालिद

(4) Sheikh Mohammed, Khalifa Al-Mansoori / शेख मोहम्मद, ख़लीफ़ा अल-मंसूरी

Q.74 In February 2025, which country signed a Comprehensive Economic Partnership Agreement (CEPA) with Ukraine?

फरवरी 2025 में, किस देश ने यूक्रेन के साथ व्यापक आर्थिक भागीदारी समझौते (CEPA) पर हस्ताक्षर किए?

(1) Japan / जापान

(2) The United Arab Emirates / संयुक्त अरब अमीरात ✔

(3) Canada / कनाडा

(4) Australia / ऑस्ट्रेलिया

Q.75 What is Qatar's new investment commitment in India, as per the joint statement in February 2025?

फरवरी 2025 के संयुक्त वक्तव्य के अनुसार, भारत में क़तर की नई निवेश प्रतिबद्धता क्या है?

(1) USD 15 billion / 15 बिलियन USD

(2) USD 20 billion / 20 बिलियन USD

(3) USD 10 billion / 10 बिलियन USD ✔

(4) USD 5 billion / 5 बिलियन USD

Q.76 The Fiscal Responsibility and Budget Management (FRBM) Act was enacted in which year?

राजकोषीय उत्तरदायित्व और बजट प्रबंधन (FRBM) अधिनियम किस वर्ष अधिनियमित किया गया था?

(1) 2003 ✔

(2) 1991

(3) 2008

(4) 1999

Q.77 The system of industrial licensing introduced complex bureaucratic procedures from 1950s to early 1990s.What was this system popularly known as?

औद्योगिक लाइसेंसिंग की व्यवस्था ने 1950 के दशक से 1990 के दशक के आरंभ तक जटिल नौकरशाही प्रक्रियाएँ लागू कीं। इस व्यवस्था को लोकप्रिय रूप से किस नाम से जाना जाता था?

(1) License Raj / लाइसेंस राज ✔

(2) Permit Code / परमिट कोड

(3) Industrial Guard System / औद्योगिक गार्ड प्रणाली

(4) Planning Framework / नियोजन ढाँचा

Q.78 At the time of launch in 2025, how many whole genome samples were included in the "Genome India Data" project?

2025 में शुरुआत के समय, "जीनोम इंडिया डेटा" परियोजना में कितने संपूर्ण जीनोम नमूने शामिल किए गए थे?

(1) 8,000

(2) 10,000 ✔

(3) 20,000

(4) 15,000

Q.79 The new framework signed between India and the United States in 2025 to enhance defense co-operation, interoperability and co-production is valid for how many years?

रक्षा सहयोग, अंतरसंचालनीयता और सह-उत्पादन को बढ़ाने के लिए 2025 में भारत और संयुक्त राज्य अमेरिका के बीच हस्ताक्षरित नया ढाँचा कितने वर्षों के लिए वैध है?

(1) 7 years / 7 वर्ष

(2) 5 years / 5 वर्ष

(3) 15 years / 15 वर्ष

(4) 10 years / 10 वर्ष ✔

Q.80 In human males, where does the production of sperm cells occur?

मानव पुरुषों में, शुक्राणु कोशिकाओं का उत्पादन कहाँ होता है?

(1) Urethra / मूत्रमार्ग

(2) Vas deferens / शुक्रवाहिका

(3) Testes / वृषण

(4) Seminiferous tubules / शुक्रजनक नलिकाएँ ✔

Arithmetical and Numerical Ability

Q.81 Study the following graph of Imports and Exports (in ₹ thousands) of a country from 1990-91 to 1994-95.

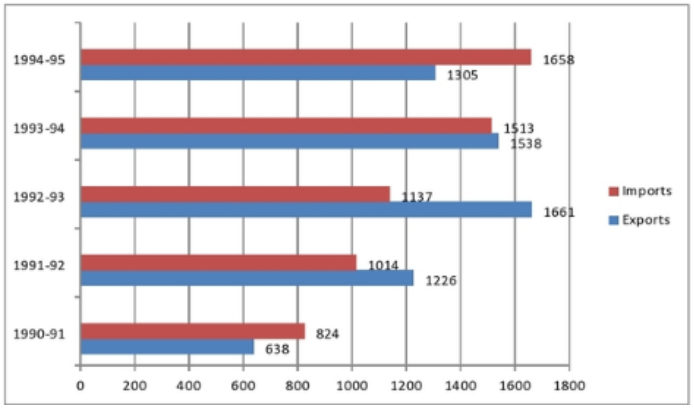

What is the average value of Imports (in ₹ thousands) from 1990-91 to 1993-94?

1990-91 से 1994-95 तक एक देश के आयात और निर्यात (₹ हज़ार में) के निम्नलिखित ग्राफ़ का अध्ययन करें।

1990-91 से 1993-94 तक आयात (₹ हज़ार में) का औसत मान क्या है?

(1) 1022

(2) 1322

(3) **1122** ✔

(4) 1222

Q.82 A shopkeeper has 24 red pens and 36 blue pens. He wants to pack them in small packets in such a way that each packet contains pens of only one colour, each packet has an equal number of pens and no pen is left over. What is the maximum number of pens he can put in each packet?

एक दुकानदार के पास 24 लाल पेन और 36 नीले पेन हैं। वह इन्हें छोटे पैकेटों में इस प्रकार पैक करना चाहता है कि प्रत्येक पैकेट में केवल एक ही रंग के पेन हों और प्रत्येक पैकेट में पेनों की संख्या बराबर हो और कोई पेन शेष न बचे। वह प्रत्येक पैकेट में अधिकतम कितने पेन रख सकता है?

(1) 4

(2) 6

(3) 8

(4) **12** ✔

Q.83 The number 144371 is divisible by which of the following?

संख्या 144371 निम्नलिखित में से किससे विभाज्य है?

(1) 25

(2) 26

(3) **23** ✔

(4) 28

Q.84 Simplify: $\sqrt[3]{(2197 \times (64/8)^3)} - 318/6$

सरल कीजिए: $\sqrt[3]{(2197 \times (64/8)^3)} - 318/6$

(1) 50

(2) 53

(3) **51** ✔

(4) 104

Q.85 Eight years ago, the average age of A, B and C was 43 years. 8 years from now, the average age of A and C will be 46 years. What will be the age (in years) of B 2 years from now?

अब से आठ वर्ष पहले, A, B और C की औसत आयु 43 वर्ष थी। अब से 8 वर्ष बाद, A और C की औसत आयु 46 वर्ष होगी। अब से 2 वर्ष बाद, B की आयु (वर्ष में) कितनी होगी?

(1) 78

(2) 79 ✔

(3) 83

(4) 75

Q.86 If $1^3 + 2^3 + 3^3 + 4^3 = 100$, then the value of $3^3 + 6^3 + 9^3 + 12^3$ is:

यदि $1^3 + 2^3 + 3^3 + 4^3 = 100$ है, तो $3^3 + 6^3 + 9^3 + 12^3$ का मान है:

(1) 900

(2) 300

(3) 2700 ✔

(4) 1800

Q.87 Ram sold an article to Reena at a profit of 12%. Reena sold it to Mohan at a loss of 8%. If Mohan paid to Reena ₹1,610, find the cost price of the article for Ram.

राम ने एक वस्तु रीना को 12% के लाभ पर बेची। रीना ने उसे मोहन को 8% की हानि पर बेच दिया। यदि मोहन ने रीना को ₹1,610 का भुगतान किया, तो राम के लिए वस्तु का क्रय मूल्य ज्ञात कीजिए।

(1) ₹1,426.30

(2) ₹1,485.40

(3) ₹1,562.50 ✔

(4) ₹1,340.20

Q.88 The average of three numbers is 21. If two numbers are 19 and 29, the third number is:

तीन संख्याओं का औसत 21 है। यदि दो संख्याएँ 19 और 29 हैं, तो तीसरी संख्या है:

(1) 14

(2) 16

(3) 17

(4) 15 ✔

Q.89 Keshav invests a sum of ₹6600 and Tushar invests a sum of ₹9800 at the same annual rate of simple interest. If at the end of 4 years, Tushar receives ₹480 more interest than Keshav, then find the annual rate of interest (in percentage).

केशव ₹6600 की धनराशि और तुषार ₹9800 की धनराशि समान वार्षिक साधारण ब्याज दर पर निवेश करते हैं। यदि 4 वर्ष के अंत में, तुषार को केशव से ₹480 अधिक ब्याज प्राप्त होता है, तो वार्षिक ब्याज दर (प्रतिशत में) ज्ञात कीजिए।

(1) 3.75 ✔

(2) 5.75

(3) 1.75

(4) 2.75

Q.90 If 60% of a number is added to 240, then the result is the same number. 80% of the same number is:

यदि किसी संख्या का 60%, 240 में जोड़ा जाता है, तो परिणाम वही संख्या प्राप्त होती है। उसी संख्या का 80% है:

(1) 720

(2) 600

(3) **480** ✔

(4) 500

Q.91 In a company, 40% of the employees spend 30% of their salary on rent, 35% spend 25% on rent, and the rest spend 20% on rent. If the average salary is ₹50,000, and rent prices increase by 12%, what is the total additional amount all employees need to pay for rent if the company has 500 employees?

एक कंपनी में, 40% कर्मचारी अपने वेतन का 30% किराए पर खर्च करते हैं, 35% कर्मचारी 25% किराए पर खर्च करते हैं, और शेष कर्मचारी 20% किराए पर खर्च करते हैं। यदि औसत वेतन ₹50,000 है, और किराए की कीमतों में 12% की वृद्धि होती है, तो यदि कंपनी में 500 कर्मचारी हैं, तो सभी कर्मचारियों को किराए के लिए कुल कितनी अतिरिक्त राशि का भुगतान करना होगा?

(1) **₹7,72,500** ✔

(2) ₹7,94,000

(3) ₹7,56,500

(4) ₹7,45,000

Q.92 The number 848829306 is divisible by which of the following?

संख्या 848829306 निम्नलिखित में से किससे विभाज्य है?

(1) 8

(2) 4

(3) **3** ✔

(4) 11

Q.93 The population of a town increases by 50% in the first year, decreases by 20% in the second year and then increases by 25% in the third year. If the present population is 75,000, what was the population of the town three years ago?

किसी कस्बे की जनसंख्या पहले वर्ष में 50% बढ़ जाती है, दूसरे वर्ष में 20% घट जाती है और फिर तीसरे वर्ष में 25% बढ़ जाती है। यदि वर्तमान जनसंख्या 75,000 है, तो तीन वर्ष पूर्व कस्बे की जनसंख्या कितनी थी?

(1) 35,000

(2) 58,000

(3) **50,000** ✔

(4) 52,000

Q.94 The greatest number of four digits which is divisible by 15, 25, 40 and 75 is:

चार अंकों की वह सबसे बड़ी संख्या, जो 15, 25, 40 और 75 से विभाज्य है, कौन-सी है?

(1) 9700

(2) **9600** ✔

(3) 9812

(4) 9800

Q.95 A family has the following monthly expenses:
Category Amount (in ₹)
Rent 12000 Food 8000 Transport 3000 Utilities 2000 Entertainment 2000 Next month, the cost of food is expected to increase by 10%, while the transport cost is expected to decrease by 20%. The other expenses remain the same. What will be the family's total monthly expense next month?

एक परिवार के मासिक व्यय निम्नलिखित हैं:
श्रेणी राशि (₹ में)
किराया 12000 भोजन 8000 परिवहन 3000 उपयोगिताएँ 2000 मनोरंजन 2000 अगले महीने, भोजन की लागत में 10% की वृद्धि होने की संभावना है, जबकि परिवहन लागत में 20% की कमी होने की संभावना है। अन्य व्यय समान रहते हैं। अगले महीने परिवार का कुल मासिक व्यय कितना होगा?

(1) ₹27,200 ✔
(2) ₹27,500
(3) ₹27,000
(4) ₹28,000

Q.96 A dishonest vendor claims that he is selling goods at their cost price, but he is weighing 678 grams for 1000 grams. What is his profit percentage (rounded off to two decimal places)?

एक बेईमान विक्रेता दावा करता है कि वह सामान क्रय मूल्य पर बेच रहा है, लेकिन वह 1000 ग्राम के स्थान पर 678 ग्राम तौलता है। उसका लाभ प्रतिशत (दो दशमलव स्थानों तक पूर्णांकित) क्या है?

(1) 45.85%
(2) 46.91%
(3) 47.49% ✔
(4) 43.22%

Q.97 Find the value of $10^{-4} \times 22^{-4} \times 6^{-4}$.

$10^{-4} \times 22^{-4} \times 6^{-4}$ का मान ज्ञात कीजिए।

(1) $\mathbf{1/1320^4}$ **✔**
(2) $1/1361^4$
(3) $1/1312^4$
(4) $1/1344^4$

Q.98 In what ratio must a grocer mix two varieties of wheat worth ₹41 per kg and ₹49 per kg, so that, if he sells the mixture at ₹54 per kg, he may gain 20%?

एक पंसारी को ₹41 प्रति kg और ₹49 प्रति kg मूल्य वाली गेहूँ की दो किस्मों को किस अनुपात में मिलाना चाहिए, ताकि यदि वह मिश्रण को ₹54 प्रति kg पर बेचे, तो उसे 20% का लाभ हो?

(1) 1:1 ✔
(2) 7:9
(3) 3:2
(4) 11:6

Q.99 The fraction equivalent to 5.27272... is:

5.27272... के तुल्य भिन्न है:

(1) 53/19

(2) 55/6

(3) **58/11 ✔**

(4) 65/4

Q.100 Amit invested equal sums at both simple interest and compound interest (compounded annually) at the same annual rate of interest of 4% for 2 years. At the end of the period, he found that there was a difference of ₹49 between the two interests earned. What was the principal (in ₹) invested in each case?

अमित ने समान धनराशियाँ साधारण ब्याज और चक्रवृद्धि ब्याज (वार्षिक रूप से संयोजित) दोनों पर समान वार्षिक ब्याज समान दर 4% से 2 वर्ष के लिए निवेश कीं। अवधि के अंत में, उसने पाया कि अर्जित दोनों ब्याजों के बीच ₹49 का अंतर है। प्रत्येक स्थिति में निवेश किया गया मूलधन (₹ में) कितना था?

(1) **30,625 ✔**

(2) 29,725

(3) 29,875

(4) 30,975

Q.101 A and B together can complete a piece of work in 8 days, B and C together in 10 days, and A and C together in 12 days.

All three start working together, but A leaves the work after 2 days, and B leaves the work 5 more days after A leaves. In how many days will C alone complete the remaining work?

A और B एक-साथ मिलकर किसी कार्य को 8 दिनों में, B और C एक-साथ मिलकर 10 दिनों में तथा A और C एक-साथ मिलकर 12 दिनों में पूरा कर सकते हैं।

तीनों एक-साथ कार्य करना शुरू करते हैं, लेकिन A, 2 दिन बाद कार्य छोड़ कर चला जाता है, और B, A के जाने के और 5 दिन बाद कार्य छोड़ कर चला जाता है। C अकेले शेष कार्य को कितने दिनों में पूरा करेगा?

(1) 7 days / 7 दिन

(2) **6 4/7 days / 6 4/7 दिन ✔**

(3) 6 3/4 days / 6 3/4 दिन

(4) 6 1/2 days / 6 1/2 दिन

Q.102 The base and the corresponding height of a parallelogram are 9 cm and 58 cm, respectively. The area of the parallelogram (in cm^2) is:

एक समांतर चतुर्भुज का आधार और संगत ऊँचाई क्रमशः 9 cm और 58 cm हैं। समांतर चतुर्भुज का क्षेत्रफल (cm^2 में) है:

(1) 472

(2) 527

(3) **522 ✔**

(4) 517

Q.103 A certain amount is divided among A, B and C in the ratio 2:3:5. If C's share is ₹450 more than A's share, what is the total amount?

एक निश्चित राशि A, B और C के बीच 2:3:5 के अनुपात में विभाजित की जाती है। यदि C का हिस्सा A के हिस्से से ₹450 अधिक है, तो कुल राशि कितनी है?

(1) ₹1750

(2) ₹1250

(3) ₹1600

(4) ₹1500 ✔

Q.104 A shopkeeper sells an item for ₹889.2 after giving two successive discounts of 90% and 85% on its marked price. Had he not given any discount, he would have earned a profit of 56%. What is the cost price (in ₹) of the item?

एक दुकानदार किसी वस्तु के अंकित मूल्य पर 90% और 85% की दो क्रमिक छूट देने के बाद उसे ₹889.2 में बेचता है। यदि वह कोई छूट नहीं देता, तो उसे 56% का लाभ होता। वस्तु का क्रय मूल्य (₹ में) कितना है?

(1) 37,967

(2) 37,953

(3) 38,000 ✔

(4) 38,024

Q.105 9 men can dig a well 21 feet deep in 2 days. How many men can dig a well 42 feet deep in 3 days?

9 आदमी 21 फीट गहरा कुआँ 2 दिनों में खोद सकते हैं। 42 फीट गहरा कुआँ 3 दिनों में कितने आदमी खोद सकते हैं?

(1) 9

(2) 18

(3) 21

(4) 12 ✔

Q.106 A and B run a km race and A wins by 54 seconds. A and C run a km race and A wins by 350 metres. B and C run a km race and B wins by 30 seconds. Find the time taken by C to run a km.

A और B, एक km की दौड़ लगाते हैं और A, 54 सेकंड से जीत जाता है। A और C, एक km की दौड़ लगाते हैं और A, 350 मीटर से जीत जाता है। B और C, एक km की दौड़ लगाते हैं और B, 30 सेकंड से जीत जाता है। एक km दौड़ने में C को लगने वाला समय ज्ञात कीजिए।

(1) 4 minutes / 4 मिनट ✔

(2) 6 minutes / 6 मिनट

(3) 5 minutes / 5 मिनट

(4) 7 minutes / 7 मिनट

Q.107 A right circular cone is 17.5 cm high. The radius of its base is 60 cm. What is its volume (in cm^3)? (Take π = 22/7)

एक लंब वृत्तीय शंकु 17.5 cm ऊँचा है। इसके आधार की त्रिज्या 60 cm है। इसका आयतन (cm^3 में) कितना है? (π = 22/7 लीजिए)

(1) 65,600

(2) 66,560

(3) 66,500

(4) 66,000 ✔

Q.108 If a right circular cone of vertical height 0.12 m has a volume of 1232 cm^3, then the curved surface area of the cone is _____.
(Use π = 22/7)

यदि 0.12 m ऊर्ध्वाधर ऊँचाई वाले एक लंब वृत्तीय शंकु का आयतन 1232 cm^3 है, तो शंकु का वक्र पृष्ठीय क्षेत्रफल _____ है।
(π = 22/7)

(1) 584 cm^2
(2) 550 cm^2
(3) **484 cm^2** ✔
(4) 480 cm^2

Q.109 A company is designing small cube-shaped gift boxes. If the total surface area of each box is 294 cm^2, what is the volume of one such box?

एक कंपनी छोटे घनाकार उपहार बॉक्स डिज़ाइन कर रही है। यदि प्रत्येक बॉक्स का संपूर्ण पृष्ठीय क्षेत्रफल 294 cm^2 है, तो ऐसे एक बॉक्स का आयतन कितना है?

(1) 361 cm^3
(2) 341 cm^3
(3) **343 cm^3** ✔
(4) 317 cm^3

Q.110 If the lateral surface area of a cylinder is 187.9 cm^2 and its height is 46 cm, then find its volume. (Use π = 3.14 and round off your answer to the nearest integer)

यदि एक बेलन का पार्श्व पृष्ठीय क्षेत्रफल 187.9 cm^2 है और इसकी ऊँचाई 46 cm है, तो इसका आयतन ज्ञात कीजिए। (π = 3.14 का प्रयोग करें और अपने उत्तर को निकटतम पूर्णांक तक पूर्णांकित करें)

(1) 56 cm^3
(2) 51 cm^3
(3) 66 cm^3
(4) **61 cm^3** ✔

Q.111 In a school library, the ratio of science books to mathematics books is 5:4. The number of science books is 650. After purchasing some more science books, the ratio becomes 7:4. How many science books were purchased?

एक विद्यालय के पुस्तकालय में, विज्ञान की पुस्तकों और गणित की पुस्तकों का अनुपात 5:4 है। विज्ञान की पुस्तकों की संख्या 650 है। विज्ञान की कुछ और पुस्तकें खरीदने के बाद, अनुपात 7:4 हो जाता है। विज्ञान की कितनी पुस्तकें खरीदी गईं?

(1) **260** ✔
(2) 220
(3) 200
(4) 240

QuickSarkari.com | WhatsApp Channel | Telegram: t.me/quick_sarkari

Q.112 The ratio of the circumference of the base and height of a cylinder is 110:7. Find the volume of the cylinder if its lateral surface area is 3080 sq.cm. (Take π = 22/7)

एक बेलन के आधार की परिधि और ऊँचाई का अनुपात 110:7 है। यदि बेलन का पार्श्व पृष्ठीय क्षेत्रफल 3080 वर्ग cm है, तो उसका आयतन ज्ञात कीजिए। (π = 22/7)

(1) 23,900 cu.cm. / 23,900 घन cm

(2) 53,900 cu.cm. / 53,900 घन cm ✔

(3) 43,900 cu.cm. / 43,900 घन cm

(4) 33,900 cu.cm. / 33,900 घन cm

Q.113 A cylindrical container of radius 7 cm and height 20 cm is completely filled with water. Find the volume of water. Use π = 22/7

7 cm त्रिज्या और 20 cm ऊँचाई वाला एक बेलनाकार पात्र पूरी तरह से पानी से भरा है। पानी का आयतन ज्ञात कीजिए।
π = 22/7 का प्रयोग करें

(1) 3056 cm^3

(2) 3080 cm^3 ✔

(3) 3089 cm^3

(4) 3780 cm^3

Q.114 A store offers a 20% discount on all shirts. Rohan wants to save a total of ₹600 through the discount. If each shirt originally costs ₹500, how many shirts should he buy?

एक स्टोर सभी शर्टों पर 20% की छूट देता है। रोहन छूट के माध्यम से कुल ₹600 बचाना चाहता है। यदि प्रत्येक शर्ट का मूल मूल्य ₹500 है, तो उसे कितनी शर्टें खरीदनी चाहिए?

(1) 8

(2) 4

(3) 10

(4) 6 ✔

Q.115 Two trains A and B are running in opposite directions at a speed of 72 km/hour and 54 km/hour respectively. If they cross each other in 15 seconds, find the sum of the length of both the trains.

दो रेलगाड़ियाँ A और B क्रमशः 72 km/घंटा और 54 km/घंटा की चाल से विपरीत दिशाओं में चल रही हैं। यदि वे 15 सेकंड में एक-दूसरे को पार करती हैं, तो दोनों रेलगाड़ियों की लंबाइयों का योग ज्ञात कीजिए।

(1) 428 meter / 428 मीटर

(2) 525 meter / 525 मीटर ✔

(3) 575 meter / 575 मीटर

(4) 496 meter / 496 मीटर

Q.116 Two taps can fill a cistern in 2 hours and 43 hours, respectively. A third tap can empty it in 43 hours. How long (in hours) will it take to fill the empty cistern, if all of them are opened together?

दो नल एक टंकी को क्रमशः 2 घंटे और 43 घंटे में भर सकते हैं। एक तीसरा नल उसे 43 घंटे में खाली कर सकता है। यदि तीनों नल एक साथ खोल दिए जाएँ, तो खाली टंकी को भरने में कितना समय (घंटों में) लगेगा?

(1) 5

(2) 3

(3) 4

(4) 2 ✔

Q.117 A metal bowl is shaped like a hollow hemisphere with an outer radius of 14 cm and an inner radius of 12 cm. The bowl is open at the top and has uniform thickness. Calculate the total surface area (in cm^2) of the bowl, including both inner, outer curved surfaces and area of the top ring. (Round off your answer to the nearest hundred.)
(Use π = 22/7)
एक धातु का कटोरा 14 cm बाहरी त्रिज्या और 12 cm आंतरिक त्रिज्या वाले एक खोखले अर्धगोले के आकार का है। कटोरा ऊपर से खुला है और इसकी मोटाई एकसमान है। आंतरिक और बाहरी दोनों वक्र पृष्ठों तथा ऊपरी वलय के क्षेत्रफल सहित कटोरे के संपूर्ण पृष्ठीय क्षेत्रफल (cm^2 में) की गणना कीजिए। (अपने उत्तर को निकटतम सैकड़े तक पूर्णांकित करें।)
(π = 22/7 का प्रयोग करें)

(1) 2200
(2) **2300** ✔
(3) 2400
(4) 2500

Q.118 A dining table set is marked for ₹32,000. A customer negotiates a 10% discount on the marked price, and the dealer further reduces ₹1,200 as a bonus. What amount does the customer finally pay?
एक डाइनिंग टेबल सेट का अंकित मूल्य ₹32,000 है। एक ग्राहक अंकित मूल्य पर 10% की छूट तय करता है, और विक्रेता बोनस के रूप में ₹1,200 और कम कर देता है। ग्राहक अंततः कितनी राशि का भुगतान करता है?

(1) ₹28,000
(2) ₹27,000
(3) **₹27,600** ✔
(4) ₹28,800

Q.119 If A varies directly as B, and A = 228 when B = 76, then find A when B = 237.
यदि A, B के अनुक्रमानुपाती है, और B = 76 होने पर A = 228 है, तो B = 237 होने पर A ज्ञात कीजिए।

(1) 714
(2) **711** ✔
(3) 713
(4) 712

Q.120 ₹8,488 is divided among X, Y, and Z such that after deducting ₹17, ₹30, and ₹71 from their respective shares, the remaining amounts are in the ratio 15 : 7 : 5. Find the difference between the original shares of Y and Z.
₹8,488 को X, Y और Z के बीच इस प्रकार विभाजित किया जाता है कि उनके संबंधित हिस्सों में से क्रमशः ₹17, ₹30 और ₹71 घटाने के बाद, शेष राशियाँ 15 : 7 : 5 के अनुपात में हैं। Y और Z के मूल हिस्सों के बीच का अंतर ज्ञात कीजिए।

(1) ₹470
(2) ₹670
(3) **₹579** ✔
(4) ₹562

English Language and Comprehension

Q.121 Choose the correct option to fill in the blank.
The researchers _____ evidence suggesting that the ancient city _____ abandoned due to prolonged droughts.

(1) were discovering, was
(2) had been discovered, had
(3) discovered, had been ✔
(4) discover, had

Q.122 In the given question, a statement divided into different segments is given. Rearrange all the segments to form a coherent statement.
(A) the principle of non-refoulement
(B) prohibits the forcible return of refugees
(C) where their lives or liberty would be threatened
(D) to territories or countries
(E) on account of race or political opinion

(1) C, B, A, D, E
(2) A, B, D, C, E ✔
(3) B, D, C, E, A
(4) D, C, E, A, B

Q.123 Select the most appropriate verb to fill in the blank.
The train _____ suddenly.

(1) have been stopping
(2) stopping
(3) stopped ✔
(4) stop

Q.124 Complete the sentence with an appropriate option.
While the theory had been discussed for decades, it wasn't until Dr. Levy's empirical study that ___ phenomenon was observed in a controlled setting.

(1) a
(2) the ✔
(3) no article required
(4) an

Q.125 Complete the sentence with correct adverb.
She glanced _____ around the room, hoping no one would notice her sneaking out early.

(1) furtively ✔
(2) absently
(3) effusively
(4) conversely

Q.126 Choose the appropriate article from the options to complete the sentence.
His noble principles and _____ commitment to social justice encouraged many to support his leadership.

(1) the
(2) an
(3) **a ✔**
(4) No article required

Q.127 Choose the correct word to complete the sentence.
The committee ___ to finalize the report by the end of the week.

(1) hope
(2) **hopes ✔**
(3) hoped
(4) hoping

Q.128 In the following sentence, replace the highlighted phrase with the most appropriate one-word substitute.
The policy failed due to a lack of careful thought and long-term planning.

(1) concision
(2) **improvidence ✔**
(3) dubiousness
(4) magnetism

Q.129 Select the most appropriate option which can be used to fill the given blank.
A person who does something without being paid is known as a/an _____.

(1) Employer
(2) Servant
(3) **Volunteer ✔**
(4) Intern

Q.130 Parts of a sentence are given below in jumbled order. Arrange the parts in the correct order to form a meaningful sentence.
(O) to see that effect are the histories / (P) of those two islands off southeastern Australia / (Q) called Tasmania and Flinders Island / (R) the places we're most likely / (S) if isolation has any effect on human societies

(1) QRSPO
(2) **SROPQ ✔**
(3) PQRSO
(4) OSPQR

Q.131 Fill in the blank with the correct option to complete the sentence using indirect speech.
Direct Speech: She said, "I cannot attend the meeting because I am unwell."
She said that she _____ the meeting because she was unwell.

(1) cannot attend
(2) might not attend
(3) will not attend
(4) **could not attend ✔**

QuickSarkari.com | WhatsApp Channel | Telegram: t.me/quick_sarkari

Q.132 Substitute the highlighted text with one word.
The antenna that my father put up is capable of moving in all directions.

(1) omnipresent
(2) omniscient
(3) **omnidirectional ✔**
(4) omnipotent

Q.133 Select the most appropriate option to fill in the blank.
She said that _____.

(1) **she would call me the next day ✔**
(2) she will call me the next day
(3) she had called me tomorrow
(4) she is calling me tomorrow

Q.134 Select the option which can be used as a one-word substitute for the given group of words.
Something which relates to the characteristic of a person who is extremely fastidious and hard to please

(1) Obstinate
(2) Malevolent
(3) **Punctilious ✔**
(4) Benevolent

Q.135 Choose the correct active voice of the sentence given below.
The decision will be made by the committee.

(1) The committee will made the decision.
(2) The committee makes the decision.
(3) The committee made the decision.
(4) **The committee will make the decision. ✔**

Q.136 A statement divided into different segments is given below. The first segment (A) is fixed. Rearrange the remaining segments to form a coherent sentence.
(A) since the electoral commission introduced biometric verification at urban polling centers
(B) and this created new barriers for elderly voters with incomplete documentation
(C) consequently complicating the commission's claim that access and integrity improved together
(D) observers reported fewer duplicate registrations but longer verification queues

(1) ABDC
(2) ACBD
(3) ACDB
(4) **ADBC ✔**

Q.137 Select the most appropriate option to fill in the blank of the direct form of the given sentence in indirect speech. Indirect Speech: The rescue official announced that help was on the way for the stranded villagers.
Direct Speech: The rescue official announced, "Help _____ on the way for the stranded villagers."

(1) has been
(2) was
(3) **is ✔**
(4) will be

Q.138 Which of the following is the correct passive voice form of the sentence?
The editorial board has rejected the article for not meeting the publication standards.

(1) The article had been rejected by the editorial board for not meeting the publication standards.
(2) The article is rejected by the editorial board for not meeting the publication standards.
(3) The article has been rejected by the editorial board for not meeting the publication standards. ✔
(4) The article was rejected by the editorial board for not meeting the publication standards.

Q.139 Which of the following is the correct active voice form of the given sentence?
The lesson is explained clearly to the students by the teacher.

(1) The lesson was explained clearly by the teacher.
(2) The teacher explain the lesson clearly to the students.
(3) The teacher explains the lesson clearly to the students. ✔
(4) The teacher explains clearly the lesson to the students.

Q.140 In the given question, a statement divided into different segments is given. The first segment is fixed, rearrange the other segments to form a coherent statement.
While negotiating the intricate
(A) clauses that could potentially
(B) shift liability, dramatically altering
(C) contract, the lawyer identified subtle
(D) the financial obligations of
(E) the multinational corporations involved

(1) BADEC
(2) CABDE ✔
(3) ABCDE
(4) DCBAE

Q.141 Select the most appropriate proverb that can substitute the underlined segment in the given sentence.
The community clean-up event fell into total chaos because everyone wanted to be a manager and give instructions, proving that when everyone tries to direct the same work, the project gets ruined.

(1) too many cooks spoil the broth ✔
(2) fools rush in where angels fear to tread
(3) hope for the best, prepare for the worst
(4) haste makes waste

Q.142 Replace the underlined word segment with the correct idiom.
Many people started investing in cryptocurrency not because they understood it, but simply because they were following a trend.

(1) Jumping on the bandwagon ✔
(2) Beating around the bush
(3) Throwing one's hat into the ring
(4) Taking it with a pinch of salt

Q.143 Choose the correct idiom that best replaces the underlined phrase in the sentence.
After the heated debate, the politician's apology seemed insincere, as he was merely trying to calm the situation without solving the real issue.

(1) Turn the tables
(2) Sweep under the rug ✔
(3) Jump the gun
(4) Bury the hatchet

Q.144 Select the most appropriate idiom/proverb that can substitute the underlined segment in the given sentence. Despite their differences, the friends always believed in managing to stay together and support each other.

(1) that too many cooks spoil the broth
(2) that actions speak louder than words
(3) that all is well that ends well
(4) that a friend in need is a friend indeed ✔

Q.145 Select the option that rectifies the underlined spelling error in the given sentence.
I have received official warnings on more than one occasion, but such is the demand for my courses that I have until now escaped suspention.

(1) suspansion
(2) saspention
(3) suspension ✔
(4) saspantion

Q.146 Choose the most appropriate antonym of the highlighted word.
The legal team argued that the witness's testimony was spurious, regardless of the atmospheric conditions at the time of the event.

(1) Authentic ✔
(2) Concise
(3) Counterfeit
(4) Hostile

Q.147 Identify the antonym of the underlined word in the sentence:
The novel's enigmatic ending left readers confused and searching for meaning.

(1) ambiguous
(2) mysterious
(3) obvious ✔
(4) cryptic

Q.148 Select the INCORRECTLY spelt word.

(1) Happily
(2) Recommend
(3) Chocolate
(4) Priviledge ✔

Q.149 Choose the word that means the opposite of the underlined word.
The committee's deliberations were characterized by a surprising degree of concord, given the contentious history of the issue.

(1) Discord ✔
(2) Affinity
(3) Amity
(4) Consonance

Q.150 Select the most appropriate ANTONYM of the highlighted word in the given sentence.
The teacher snubbed the petition laid by the most notorious boy of the class.

(1) Opprobrious
(2) Reputable ✔
(3) Scandalous
(4) Dishonourable

Q.151 Where did the narrator spend the summer vacation?

(1) In a coastal town
(2) In a desert region
(3) In a small village near the mountains ✔
(4) In a crowded metropolitan city

Q.152 What activity did villagers often do together in the evenings?

(1) Attend political rallies
(2) Share stories and sing folk songs ✔
(3) Play indoor games
(4) Watch movies and write a review

Q.153 What can be inferred about the narrator's opinion of urban life?

(1) The narrator feels urban life may lack strong social connections. ✔
(2) The narrator thinks village life is economically superior in every way.
(3) The narrator believes urban life always provides happiness.
(4) The narrator completely dislikes cities and modern technology.

Q.154 Select the ANTONYM of the following word.
Generosity

(1) Inhumanity ✔
(2) Empathy
(3) Morality
(4) Kindness

Q.155 Identify the tone of the passage.

(1) Angry and critical
(2) Suspenseful and mysterious
(3) Humorous and playful
(4) Reflective and peaceful ✔

QuickSarkari.com | WhatsApp Channel | Telegram: t.me/quick_sarkari

Q.156 Which achievement of Lionel Messi is specifically mentioned in the passage?

(1) Leading Argentina to victory in the 2022 FIFA World Cup ✔

(2) Becoming the coach of Argentina even in tough times

(3) Winning an Olympic gold medal as a representative of the country

(4) Winning the UEFA Champions League amidst all adversities

Q.157 What activities were expected to be included in Messi's India tour?

(1) Music concerts, social meet- ups, brand advertisements and film promotions

(2) Political campaigns, rallies and debates in school and colleges

(3) Cricket tournaments and award shows hosted by big corporates

(4) Promotional events, football workshops, and interactions with young players ✔

Q.158 What can be inferred about football's popularity in India?

(1) Cricket continues to dominate public attention in many regions. ✔

(2) Football receives no support from educational institutions.

(3) Indian youth are completely uninterested in football.

(4) Football is more popular than cricket in every region of India.

Q.159 Select the ANTONYM of the following word.

Extraordinary

(1) Brimming

(2) Singular

(3) Typical ✔

(4) Exceptional

Q.160 Select the central theme of this passage.

(1) The rivalry between football and cricket as documented

(2) The cultural and commercial impact of Messi's India tour ✔

(3) The decline of football in international sports

(4) The history of growth of football in Argentina

Hindi Language and Comprehension

Q.161 उपयुक्त 'क्रिया ' का प्रयोग कर दिए गए वाक्य को पूर्ण कीजिए।

जेनी अपने हाथ से खाना ' ..... है। '

(1) लुटाती

(2) सोती

(3) सुलाती

(4) खाती ✔

Q.162 निम्नलिखित विकल्पों में से उचित कारक चिह्न वाले विकल्प का चयन कर वाक्य पूर्ण करें – लड़के ने हाथ..... फल तोड़ा ।

(1) द्वारा

(2) में

(3) से ✔

(4) को

Q.163 निम्नलिखित अशुद्ध वाक्य के सही क्रम वाले शुद्ध रूप का चयन कीजिए।
अनेक बार अंग्रेजी शब्दों को यथावत् ग्रहण करना पड़ता है। अंग्रेजी से हिंदी अनुवाद में

(1) अंग्रेजी से हिंदी अनुवाद में अनेक बार अंग्रेजी शब्दों को यथावत् ग्रहण करना पड़ता है। ✔
(2) अंग्रेजी शब्दों को अंग्रेजी से हिंदी अनुवाद में अनेक बार यथावत् ग्रहण करना पड़ता है।
(3) ग्रहण करना पड़ता है अंग्रेजी से हिंदी अनुवाद में अनेक बार अंग्रेजी शब्दों को यथावत्
(4) यथावत् ग्रहण करना पड़ता है। अंग्रेजी से हिंदी अनुवाद में अनेक बार अंग्रेजी शब्दो को

Q.164 निम्नलिखित वाक्य के रिक्त स्थान पर सबसे उपयुक्त क्रिया विशेषण का चयन कीजिए।
जब से उसकी नौकरी लगी है वह ___ सुखी है।

(1) रातभर
(2) दिनभर
(3) दिनरात
(4) अत्यंत ✔

Q.165 निम्नलिखित वाक्य के रिक्त स्थान की उचित विशेषण शब्द से पूर्ति कीजिए- 'मुझे _____ मिष्ठान्न अच्छा लगता है।'

(1) गाढ़ा
(2) घना
(3) भारतीय ✔
(4) सुडौल

Q.166 'बहुत अच्छा वक्ता' वाक्यांश के लिए सार्थक शब्द क्या होगा?

(1) वागीश्वर ✔
(2) वसु
(3) वाग्दत्त
(4) वायस

Q.167 उपयुक्त क्रिया का चयनकर दिए गए वाक्य को पूर्ण कीजिए।
'शिवमूरत नहाकर कपड़े ..... रहा है।'

(1) सो
(2) पहन ✔
(3) जाग
(4) खा

Q.168 उचित कारक चिह्नों से वाक्य पूर्ण करें।
अंशु _____ बहन आशु है।

(1) का
(2) के
(3) की ✔
(4) के साथ

Q.169 निम्नलिखित वाक्यों में से सही क्रम वाले वाक्य का चयन कीजिए-

(1) अभूतपूर्व संभावनाएँ उत्पन्न की हैं कृत्रिम बुद्धिमत्ता ने अनुसंधान,स्वास्थ्य और शिक्षा के क्षेत्र में।
(2) कृत्रिम बुद्धिमत्ता ने अनुसंधान,स्वास्थ्य और शिक्षा के क्षेत्र में उत्पन्न की हैं अभूतपूर्व संभावनाएँ।
(3) अनुसंधान,स्वास्थ्य और शिक्षा के क्षेत्र में अभूतपूर्व संभावनाएँ उत्पन्न की हैं कृत्रिम बुद्धिमत्ता ने।
(4) कृत्रिम बुद्धिमत्ता ने अनुसंधान,स्वास्थ्य और शिक्षा के क्षेत्र में अभूतपूर्व संभावनाएँ उत्पन्न की हैं। ✔

Quick Sarkari

Q.170 'दूतावास के कर्मचारियों से मेरी घनिष्ट मित्रता है।' वाक्य के किस शब्द में वर्तनी संबंधी त्रुटि है?

(1) दूतावास

(2) **घनिष्ट ✔**

(3) मित्रता

(4) कर्मचारियों

Q.171 निम्नलिखित में से कौन-से वाक्य में त्रुटि है?

(1) **मैं गाना सुनता हैं। ✔**

(2) हम यात्रा पर जाएँगे।

(3) मैं गाना सुनता हूँ।

(4) तुम मेरे मित्र हो।

Q.172 निम्नलिखित वाक्य को पूर्ण करने के लिए उचित कालवाचक क्रिया-विशेषण का चयन करें- वे लोग _____ ही गाँव से लौटे हैं।

(1) बहुत

(2) **आज ✔**

(3) भीतर

(4) धीरे

Q.173 सही कारक चिह्न का प्रयोग कर दिए गए वाक्य को पूर्ण कीजिए।
'यमुना नदी यमुनोत्री .....निकलती है'।

(1) के द्वारा

(2) **से ✔**

(3) अहो

(4) ऊपर

Q.174 निम्नलिखित मुहावरे का अर्थ बताइए।
आकाश पर दिया जलाना

(1) अपना गुस्सा व्यक्त करना

(2) मेहनती कार्य करना

(3) **इतराना या घमंड करना। ✔**

(4) रात में रोशनी करना

Q.175 निम्नलिखित वाक्यांश के लिए सार्थक शब्द बताएं - 'जिस पर विजय पाना कठिन हो'

(1) निर्गुण

(2) दुर्गम

(3) दुष्कर

(4) **दुर्जेय ✔**

Q.176 निम्नलिखित वाक्य के रिक्त स्थान में कर्म कारक चिह्न का प्रयोग कर वाक्य पूर्ण करें - 'अध्यापक देखकर बच्चे भाग गए ।'

(1) **को ✔**

(2) पर

(3) में

(4) ने

QuickSarkari.com | WhatsApp Channel | Telegram: t.me/quick_sarkari

Q.177 नीचे दिए गए वाक्य खंडों को सही क्रम में व्यवस्थित कीजिए - 1.तीन हज़ार 2.पक्की 3.अंत में 4.हो गई 5.में बात

(1) 24351

(2) **31524** ✔

(3) 52431

(4) 15324

Q.178 दिए गए विकल्पों में से निम्नलिखित वाक्य को उपयुक्त अनिश्चित संख्यावाचक विशेषण द्वारा पूरा करें- रोमांचक मैच देखकर _____ दर्शकगण नाचने लगें।

(1) बुद्धू

(2) देशप्रेमी

(3) **कई** ✔

(4) अभिमानी

Q.179 'सुहास ने _____ पढ़ाई की।' अनिश्चित परिमाणवाचक विशेषण का प्रयोग कर इस वाक्य को पूर्ण कीजिए।

(1) रातभर

(2) **बहुत** ✔

(3) दिनभर

(4) चार घंटे

Q.180 उपयुक्त 'विशेषण' का चयनकर रिक्त स्थान की पूर्ति कीजिए।
' सुहानी एक .....लड़की है।'

(1) सुनहरा

(2) **गरीब** ✔

(3) धुँधला

(4) सूखा

Q.181 'गर्दन उठाना' मुहावरे का क्या अर्थ होता है?

(1) लाभ करना

(2) पीछे पड़ना

(3) **प्रतिवाद करना** ✔

(4) हानि करना

Q.182 दिए गए विकल्पों में से वृष्टि का सटीक विलोम शब्द चुनिए -

(1) समष्टि

(2) व्यष्टि

(3) अतिवृष्टि

(4) **अनावृष्टि** ✔

Q.183 निम्नलिखित लोकोक्ति के अर्थ को बताएं - 'दुधारू गाय की लात भी भली'

(1) प्रताड़ित होने पर छोटे से छोटा व्यक्ति भी बदला लेता है

(2) देना न लेना मुफ़्त का काम लेना

(3) लोगों को निंदा करने से किसने रोका है

(4) **जिससे लाभ हो उसके खरी-खोटी भी बुरी नहीं लगती** ✔

QuickSarkari.com | WhatsApp Channel | Telegram: t.me/quick_sarkari

Q.184 दिये गये वाक्य के किस भाग में त्रुटि है?
जानतान्त्रिक प्रणाली में सत्ता का परिवर्तन अहिंसक साधनों से होने पर उसकी परिपक्वता प्रमाणित होती है।

(1) सत्ता का परिवर्तन अहिंसक
(2) परिपक्वता प्रमाणित होती है
(3) **जानतान्त्रिक प्रणाली में ✔**
(4) साधनों से होने पर उसकी

Q.185 'सुबह-शाम करना' मुहावरे का सही अर्थ है –
(1) **टाल मटोल करना ✔**
(2) बहुत दुर्बल हो जाना
(3) दशा सुधारना
(4) छीन लेना

Q.186 'तवे की बूँद होना' - मुहावरे के उपयुकर अर्थ का चयन कीजिए।
(1) **क्रोध आना ✔**
(2) सिद्धांतहीन व्यक्ति
(3) तुरंत नष्ट हो जाना
(4) धुआँ फैलना

Q.187 निम्नलिखित किस वाक्य में वर्तनी की अशुद्धि नहीं है?
(1) जो दूसरों के लिए सोचता है, वही वास्तव में इंसान कहलाने योग्ज़ है।
(2) परीक्षा जीवन की हर अवस्था में आती है, केवल विघालय तक सिमीत नहीं।
(3) **परिश्रमी किसान ही देश के अन्न भंडार को भरता है। ✔**
(4) विश्वास टुटने पर रिश्तों की नींव हिल जाती है।

Q.188 निम्नलिखित मुहावरे का सही अर्थ चुनें- 'देवता कूंच कर जाना'
(1) लाभ कमाना
(2) परेशानियों से मुक्त होना
(3) **बहुत डर जाना ✔**
(4) अचानक भाग्य चमकना

Q.189 नीचे दिये गए वाक्य में रिक्त स्थान की पूर्ति के लिए 'मानव' शब्द के उपयुक्त पर्यायवाची शब्द का चयन करें- व्यक्तित्व विकास के देवत्व तुल्य धरातल पर पहुँचकर.....साधारण नर से नारायण बन जाता है।
(1) मन
(2) महाजन
(3) **मनुष्य ✔**
(4) महामना

Q.190 निम्नलिखित में से कौन-से वाक्य में त्रुटि है ?
(1) **वह किताब पढ़ेगा हूँ। ✔**
(2) मोहन ने चाय पी।
(3) मैं बाज़ार से सब्ज़ी लाया।
(4) तुमने मुझे बुलाया नहीं।

Q.191 निम्न में से गद्यांश के लिए उपयुक्त शीर्षक का चयन कीजिए।

(1) बनारस

(2) दिल्ली

(3) मुंबई

(4) इलाहाबाद ✔

Q.192 निम्न में से लेखक ने इलाहाबाद को कब छोड़ा ?

(1) 14 अगस्त 1970 को

(2) 14 अगस्त 1990 को

(3) 14 अगस्त 1980 को

(4) 14 अगस्त 1960 को ✔

Q.193 हरिप्रसाद चौरसिया अपने किस दोस्त के पास इलाहाबाद जाते थे?

(1) भारती

(2) विश्वंभर ✔

(3) ओंकारनाथ

(4) अजित कुमार

Q.194 गद्यांश में प्रयुक्त 'बैरंग' शब्द का अर्थ कौन-सा है ?

(1) फीका

(2) विफल ✔

(3) वैराग्य

(4) सैनिक

Q.195 निम्न में से गद्यांश में प्रयुक्त शब्द 'दोस्त' का विलोम कौन-सा है ?

(1) दोषी

(2) दुश्मन ✔

(3) दुःख

(4) देहात

Q.196 उपयुक्त गद्यांश के आधार पर निम्नलिखित में से सबसे उपयुक्त शीर्षक का चयन करें।

(1) नगरपालिका और विद्यालयों की व्यवस्था

(2) पुनरीक्षण का महत्त्व और अनुवाद में उसकी भूमिका ✔

(3) अनुवाद की परिभाषा और प्रकार

(4) परिभाषिक शब्दों की सूची

Q.197 उपयुक्त गद्यांश का केन्द्रीय विषय क्या है?

(1) अनुवादक द्वारा किए गए अनुवाद के पुनरीक्षण के महत्त्व को प्रकाशित करना। ✔

(2) अनुवादक को सदैव बैंक में कार्यरत लोगो की तरह सावधान रहना चाहिए।

(3) अनुवाद के लिए पुनरीक्षण अनावश्यक है।

(4) सभी अनुवादक स्वयं पुनरीक्षक बन सकते हैं।

Q.198 उपयुक्त गद्यांश के आधार पर निम्नलिखित विकल्पों में से असत्य तथ्य का चयन कीजिए।

(1) पुनरीक्षण एक तरह से 'क्रॉस चेकिंग' का कार्य करते हैं।

(2) 'तीसरा नेत्र' वह सब देख सकता है जो दो नेत्र नहीं देख पाते।

(3) पुनरीक्षण' शब्द पुनः + ईक्षण से बना है जिसका अर्थ है-फिर से देखना।

(4) 'निंदक नियरे राखिए' के आधार पर पुनरीक्षक को अनुवादक की शरण लेनी होती है। ✔

Q.199 उपयुक्त गद्यांश में आए शब्द 'अनुवादक' का पर्यायवाची इनमें से कौन सा शब्द नहीं है?

(1) भाषांतरकार

(2) उल्थाकार

(3) दुभाषिया

(4) **दुहराव ✔**

Q.200 उपयुक्त गद्यांश में आए शब्द 'अनुकूल' का विलोम शब्द बताइए।

(1) **प्रतिकूल ✔**

(2) प्रतिमूल

(3) उपयुक्त

(4) अनुरूप

Answer Key / उत्तर कुंजी

1 4	2 4	3 1	4 3	5 2	6 3	7 1	8 2	9 2	10 3	11 3	12 4	13 3	14 4	15 1
16 2	17 4	18 3	19 3	20 1	21 1	22 1	23 2	24 1	25 3	26 1	27 4	28 1	29 4	30 3
31 4	32 3	33 1	34 2	35 4	36 4	37 2	38 4	39 1	40 1	41 3	42 4	43 2	44 4	45 3
46 2	47 4	48 4	49 4	50 1	51 2	52 3	53 3	54 1	55 2	56 2	57 3	58 3	59 2	60 4
61 2	62 4	63 1	64 1	65 1	66 4	67 2	68 2	69 1	70 3	71 4	72 1	73 1	74 2	75 3
76 1	77 1	78 2	79 4	80 4	81 3	82 4	83 3	84 3	85 2	86 3	87 3	88 4	89 1	90 3
91 1	92 3	93 3	94 2	95 1	96 3	97 1	98 1	99 3	100 1	101 2	102 3	103 4	104 3	105 4
106 1	107 4	108 3	109 3	110 4	111 1	112 2	113 2	114 4	115 2	116 4	117 2	118 3	119 2	120 3
121 3	122 2	123 3	124 2	125 1	126 3	127 2	128 2	129 3	130 2	131 4	132 3	133 1	134 3	135 4
136 4	137 3	138 3	139 3	140 2	141 1	142 1	143 2	144 4	145 3	146 1	147 3	148 4	149 1	150 2
151 3	152 2	153 1	154 1	155 4	156 1	157 4	158 1	159 3	160 2	161 4	162 3	163 1	164 4	165 3
166 1	167 2	168 3	169 4	170 2	171 1	172 2	173 2	174 3	175 4	176 1	177 2	178 3	179 2	180 2
181 3	182 4	183 4	184 3	185 1	186 1	187 3	188 3	189 3	190 1	191 4	192 4	193 2	194 2	195 2
196 2	197 1	198 4	199 4	200 1										

QuickSarkari.com | WhatsApp Channel | Telegram: t.me/quick_sarkari

Quick Sarkari

Thank you for studying with QuickSarkari!

Get the latest Sarkari Naukri notifications, admit cards, results, answer keys and free previous-year papers first - follow us on WhatsApp and Telegram.

Visit www.quicksarkari.com

Join our WhatsApp Channel

https://whatsapp.com/channel/0029VaxxbrREquiPoXTWM229

Join our Telegram Channel

https://t.me/quick_sarkari

Share this PDF with your friends preparing for DSSSB exams.