DSSSB PREVIOUS YEAR PAPER WITH ANSWER KEY

DSSSB Assistant Superintendent

3 July 2026 · Shift 2

डीएसएसएसबी सहायक अधीक्षक – 3 जुलाई 2026, शिफ्ट 2 का प्रश्न पत्र, उत्तर कुंजी सहित

200	120 min	1 / −0.25	EN + HI
Questions / प्रश्न	Duration / समय	Marks per Q / अंक	Language / भाषा

Sections: General Intelligence and Reasoning Ability, General Awareness, Arithmetical and Numerical Ability, English Language and Comprehension, Hindi Language and Comprehension

INSIDE THIS PDF / इस PDF में

Question Paper in English + Hindi with Answer Key (correct option marked in green) + answer table Page 2–42
प्रश्न पत्र अंग्रेज़ी + हिंदी में, उत्तर कुंजी सहित (सही विकल्प हरे रंग में) + उत्तर तालिका

HOW TO USE THIS PAPER / इस पेपर का उपयोग कैसे करें

1. Attempt the paper first as a timed online mock test (link below).
   पहले नीचे दिए लिंक से इसे टाइमर के साथ ऑनलाइन मॉक टेस्ट के रूप में हल करें।
2. Check your score, section-wise analysis and solutions online.
   ऑनलाइन अपना स्कोर, खंड-वार विश्लेषण और हल देखें।
3. Use this PDF for revision. Correct answers are shown in green.
   दोहराने के लिए इस PDF का उपयोग करें। सही उत्तर हरे रंग में दिए गए हैं।

Attempt this paper as a FREE online mock test

इस पेपर को फ्री ऑनलाइन मॉक टेस्ट के रूप में हल करें – टाइमर, स्कोर और हल के साथ

https://quicksarkari.com/dsssb-assistant-superintendent-03-july-2026-shift-2-mock-test/

All DSSSB Assistant Superintendent papers and mock tests: **quicksarkari.com/dsssb-mock-test/#assistant-superintendent**

Join WhatsApp Channel | Join Telegram Channel

DSSSB Assistant Superintendent – Question Paper (English + Hindi)

DSSSB सहायक अधीक्षक – प्रश्न पत्र (अंग्रेज़ी + हिंदी)

Exam held on 3 July 2026, Shift 2 · 200 questions · correct answers marked ✔ in green
परीक्षा तिथि 3 जुलाई 2026, शिफ्ट 2 · 200 प्रश्न · सही उत्तर हरे रंग में ✔ से चिह्नित

> The official paper for this shift was in English. The Hindi version of each question is a translation prepared by QuickSarkari; the language-section questions are shown as asked.
> इस शिफ्ट का आधिकारिक प्रश्न पत्र अंग्रेज़ी में था। प्रत्येक प्रश्न का हिंदी संस्करण QuickSarkari द्वारा तैयार किया गया अनुवाद है; भाषा खंड के प्रश्न मूल रूप में दिए गए हैं।

General Intelligence and Reasoning Ability

Q.1 In a certain code language, 'NIVE' is coded as '?9*&' and 'DINE' is coded as '@9?&'. What is the code for 'D' in the given code language?
एक निश्चित कूट भाषा में, 'NIVE' को '?9*&' के रूप में कूटबद्ध किया जाता है और 'DINE' को '@9?&' के रूप में कूटबद्ध किया जाता है। दी गई कूट भाषा में 'D' के लिए कूट क्या है?

(1) &
(2) @ ✔
(3) ?
(4) 9

Q.2 Six friends H, I, J, K, C and D live on six different floors of the same building. The lowermost floor in the building is numbered 1, the floor above it, number 2 and so on till the topmost floor is numbered 6. K lives immediately above D. Only two people live between H and D. H lives on an odd numbered floor. I lives immediately below C. How many people live between J and C?
छह मित्र H, I, J, K, C और D एक ही इमारत की छह अलग-अलग मंजिलों पर रहते हैं। इमारत की सबसे निचली मंजिल की संख्या 1 है, उसके ऊपर वाली मंजिल की संख्या 2 है और इसी प्रकार सबसे ऊपरी मंजिल की संख्या 6 है। K, D के ठीक ऊपर रहता है। H और D के बीच केवल दो व्यक्ति रहते हैं। H एक विषम संख्या वाली मंजिल पर रहता है। I, C के ठीक नीचे रहता है। J और C के बीच कितने व्यक्ति रहते हैं?

(1) Three / तीन
(2) Four / चार
(3) **Two / दो** ✔
(4) One / एक

Q.3 Each vowel in the word PLAGUED is changed to the letter immediately following it in the English alphabetical order and each consonant is changed to the letter immediately preceding it in the English alphabetical order. How many vowels are there in the group of letters thus formed?
शब्द PLAGUED में प्रत्येक स्वर को अंग्रेजी वर्णमाला क्रम में उसके ठीक बाद वाले अक्षर में बदल दिया जाता है और प्रत्येक व्यंजन को अंग्रेजी वर्णमाला क्रम में उसके ठीक पहले वाले अक्षर में बदल दिया जाता है। इस प्रकार बने अक्षर-समूह में कितने स्वर हैं?

(1) 0
(2) 3
(3) 1 ✔
(4) 2

Q.4 Select the option that is related to the fifth letter-cluster in the same way as the second letter-cluster is related to the first letter-cluster and the fourth letter-cluster is related to the third letter-cluster.
LOVE : ONLKEDVU : : FEAR : UTVUZYIH : : ENVY : ?

उस विकल्प का चयन करें जो पाँचवें अक्षर-समूह से उसी प्रकार संबंधित है, जिस प्रकार दूसरा अक्षर-समूह पहले अक्षर-समूह से संबंधित है और चौथा अक्षर-समूह तीसरे अक्षर-समूह से संबंधित है।
LOVE : ONLKEDVU : : FEAR : UTVUZYIH : : ENVY : ?

(1) VUMLEDBC
(2) VUMLFCBA
(3) VUMNEDAZ
(4) **VUMLEDBA ✔**

Q.5 A, B, G, H, P, Q, S and T live on eight different floors of the same building. The lowermost floor in the building is numbered 1, the floor above it is number 2 and so on till the topmost floor is numbered 8. B lives on the floor numbered 6. Only one person lives between A and B. Only four people live between A and G. S lives on one of the even-numbered floors above G. H lives immediately above T. Only two people live between H and P. On which floor does Q live?

A, B, G, H, P, Q, S और T एक ही इमारत की आठ अलग-अलग मंजिलों पर रहते हैं। इमारत की सबसे निचली मंजिल की संख्या 1 है, उसके ऊपर वाली मंजिल की संख्या 2 है और इसी प्रकार सबसे ऊपरी मंजिल की संख्या 8 है। B मंजिल संख्या 6 पर रहता है।
A और B के बीच केवल एक व्यक्ति रहता है। A और G के बीच केवल चार व्यक्ति रहते हैं। S, G के ऊपर किसी एक सम संख्या वाली मंजिल पर रहता है। H, T के ठीक ऊपर रहता है। H और P के बीच केवल दो व्यक्ति रहते हैं। Q किस मंजिल पर रहता है?

(1) **7 ✔**
(2) 8
(3) 2
(4) 3

Q.6 Each of X, Y, Z, W, V, U, and T has a shift on a different day of the week from Monday to Sunday. X has a shift on Wednesday. Y's shift is immediately after X. There are three shifts between W and V. V's shift is on a day immediately before T but after U. Z has a shift immediately after T. U has a shift immediately before X. Who has a shift on friday?

X, Y, Z, W, V, U और T में से प्रत्येक की सोमवार से रविवार तक सप्ताह के एक अलग दिन पर शिफ्ट है। X की शिफ्ट बुधवार को है। Y की शिफ्ट X के ठीक बाद है। W और V के बीच तीन शिफ्टें हैं। V की शिफ्ट T के ठीक पहले वाले दिन है, लेकिन U के बाद है। Z की शिफ्ट T के ठीक बाद है। U की शिफ्ट X के ठीक पहले है। शुक्रवार को किसकी शिफ्ट है?

(1) Z
(2) W
(3) U
(4) **V ✔**

Q.7 Lavnya ranked 10th from the bottom and 28th from the top in his class. How many students are there in his class?

लावण्या अपनी कक्षा में नीचे से 10th और ऊपर से 28th स्थान पर है। उसकी कक्षा में कितने विद्यार्थी हैं?

(1) 39
(2) **37 ✔**
(3) 36
(4) 38

Q.8 A, B, C, D, E, F and G are sitting around a circular table, facing the centre. Only two people sit between F and C when counted from the left of C. E sits third to the left of B. G sits to the immediate right of B. G sits second to the left of F. A is an immediate neighbour of E. How many people sit between C and D when counted from the left of D?

A, B, C, D, E, F और G एक वृत्ताकार मेज के चारों ओर केंद्र की ओर मुख करके बैठे हैं। C के बाएँ से गिनने पर F और C के बीच केवल दो व्यक्ति बैठे हैं। E, B के बाएँ से तीसरे स्थान पर बैठा है। G, B के ठीक दाएँ बैठा है। G, F के बाएँ से दूसरे स्थान पर बैठा है। A, E का निकटतम पड़ोसी है। D के बाएँ से गिनने पर C और D के बीच कितने व्यक्ति बैठे हैं?

(1) 2 ✔
(2) 3
(3) 4
(4) 1

Q.9 This question is based on the following words.
PCR ZUI BXP NEO If in each of the words, each letter is changed to the preceding letter in the English alphabetical order, how many words thus formed will have no vowel?

यह प्रश्न निम्नलिखित शब्दों पर आधारित है।
PCR ZUI BXP NEO यदि प्रत्येक शब्द में, प्रत्येक अक्षर को अंग्रेजी वर्णमाला क्रम में उसके पिछले अक्षर में बदल दिया जाए, तो इस प्रकार बने कितने शब्दों में कोई स्वर नहीं होगा?

(1) Two / दो ✔
(2) One / एक
(3) None / कोई नहीं
(4) Three / तीन

Q.10 The position(s) of how many letters will remain unchanged if each of the letters in the word CULTIVATOR is arranged in reverse alphabetical order?

यदि शब्द CULTIVATOR के प्रत्येक अक्षर को उल्टे वर्णमाला क्रम में व्यवस्थित किया जाए, तो कितने अक्षरों का/के स्थान अपरिवर्तित रहेगा/रहेंगे?

(1) One / एक
(2) Two / दो ✔
(3) Four / चार
(4) Three / तीन

Q.11 This question is based on the following words.
YBM GSC VKE LOR If in each of the words, each letter is changed to the preceding letter in the English alphabetical order, how many words thus formed will have no vowel?

यह प्रश्न निम्नलिखित शब्दों पर आधारित है।
YBM GSC VKE LOR यदि प्रत्येक शब्द में, प्रत्येक अक्षर को अंग्रेजी वर्णमाला क्रम में उसके पिछले अक्षर में बदल दिया जाए, तो इस प्रकार बने कितने शब्दों में कोई स्वर नहीं होगा?

(1) Two / दो ✔
(2) Three / तीन
(3) Four / चार
(4) One / एक

Q.12 In a certain code language, 'LOST' is coded as '4268' and 'SIDE' is coded as '3527'. What is the code for 'S' in the given code language?

एक निश्चित कूट भाषा में, 'LOST' को '4268' के रूप में कूटबद्ध किया जाता है और 'SIDE' को '3527' के रूप में कूटबद्ध किया जाता है। दी गई कूट भाषा में 'S' के लिए कूट क्या है?

(1) 3

(2) 7

(3) **2** ✔

(4) 6

Q.13 In the following triads, each group of letters is related to the subsequent one following a certain logic. Select from the given options, the one which follows the same logic.

CHOP - PCOH - CPHO NAME - ENMA - NEAM

निम्नलिखित त्रिकों में, अक्षरों का प्रत्येक समूह एक निश्चित तर्क का अनुसरण करते हुए अपने बाद वाले समूह से संबंधित है। दिए गए विकल्पों में से उसका चयन करें जो समान तर्क का अनुसरण करता है।

CHOP - PCOH - CPHO NAME - ENMA - NEAM

(1) FAME - EFMA - FAEM

(2) FILE - EFIL - ILEF

(3) **PLAY - YPAL - PYLA** ✔

(4) BIND - IBND - DINB

Q.14 Refer to the given number and symbol series and answer the question that follows. Counting to be done from left to right only.

(Left) * 2 & 5 9 $ 1 % 3 Ω £ 7 + # 4 6 @ 8 (Right)

How many such numbers are there, each of which is immediately preceded by a symbol and also immediately followed by another symbol?

दी गई संख्या और प्रतीक श्रृंखला को देखिए और उसके बाद दिए गए प्रश्न का उत्तर दीजिए। गिनती केवल बाएँ से दाएँ की जानी है।

(बाएँ) * 2 & 5 9 $ 1 % 3 Ω £ 7 + # 4 6 @ 8 (दाएँ)

ऐसी कितनी संख्याएँ हैं, जिनमें से प्रत्येक के ठीक पहले एक प्रतीक है और ठीक बाद भी एक अन्य प्रतीक है?

(1) 5

(2) 6

(3) 3

(4) **4** ✔

Q.15 Refer to the given number and symbol series and answer the question that follows. Counting to be done from left to right only.

(Left) 5 9 $ 1 % + # 4 6 @ 8 3 Ω * 2 & £ 7 (Right)

How many such numbers are there, each of which is immediately preceded by another number and also immediately followed by a symbol?

दी गई संख्या और प्रतीक श्रृंखला को देखिए और उसके बाद दिए गए प्रश्न का उत्तर दीजिए। गिनती केवल बाएँ से दाएँ की जानी है।

(बाएँ) 5 9 $ 1 % + # 4 6 @ 8 3 Ω * 2 & £ 7 (दाएँ)

ऐसी कितनी संख्याएँ हैं, जिनमें से प्रत्येक के ठीक पहले एक अन्य संख्या है और ठीक बाद एक प्रतीक है?

(1) 5

(2) 4

(3) 2

(4) **3** ✔

Q.16 Seven people, D, E, F, G, L, M and N are sitting in a row, facing north.
No one sits to the left of E. Only four people sit between E and N. Only three people sit to the right of M. D sits to the immediate left of F. G is not an immediate neighbor of M.
Who sits third to the left of G?
सात व्यक्ति D, E, F, G, L, M और N एक पंक्ति में उत्तर की ओर मुख करके बैठे हैं।
E के बाईं ओर कोई नहीं बैठा है। E और N के बीच केवल चार व्यक्ति बैठे हैं। M के दाईं ओर केवल तीन व्यक्ति बैठे हैं। D, F के ठीक बाएँ बैठा है। G, M का निकटतम पड़ोसी नहीं है।
G के बाएँ से तीसरे स्थान पर कौन बैठा है?

(1) L
(2) E
(3) M ✔
(4) F

Q.17 In a certain code language, 'items have shipped' is coded as 'mp ro gp' and 'know the items' is coded as 'io mp bo'. How is 'items' coded in that language? (Note: All codes are two letter codes only)
एक निश्चित कूट भाषा में, 'items have shipped' को 'mp ro gp' के रूप में कूटबद्ध किया जाता है और 'know the items' को 'io mp bo' के रूप में कूटबद्ध किया जाता है।
उस भाषा में 'items' को कैसे कूटबद्ध किया जाता है? (नोट: सभी कूट केवल दो अक्षरों वाले कूट हैं)

(1) ro
(2) to
(3) gp
(4) mp ✔

Q.18 R is the wife of S. S is the father of T. T is the brother of G. G is the sister of H. How is R related to H?
R, S की पत्नी है। S, T का पिता है। T, G का भाई है। G, H की बहन है। R का H से क्या संबंध है?

(1) Mother's brother's wife / माँ के भाई की पत्नी
(2) Sister / बहन
(3) Mother / माँ ✔
(4) Mother's sister / माँ की बहन

Q.19 Refer to the following letter and symbol series and answer the question that follows. Counting to be done from left to right only.
(Left) M # * $ P @ O € F P R & Q X # Y % O F $ B S (Right)
How many such letters are there each of which is immediately preceded by a letter and also immediately followed by a symbol?
निम्नलिखित अक्षर और प्रतीक श्रृंखला को देखिए और उसके बाद दिए गए प्रश्न का उत्तर दीजिए। गिनती केवल बाएँ से दाएँ की जानी है।
(बाएँ) M # * $ P @ O € F P R & Q X # Y % O F $ B S (दाएँ)
ऐसे कितने अक्षर हैं, जिनमें से प्रत्येक के ठीक पहले एक अक्षर है और ठीक बाद एक प्रतीक है?

(1) 6
(2) 3 ✔
(3) 5
(4) 4

Q.20 ELRU is related to IPOR in a certain way based on the English alphabetical order. In the same way, UBFI is related to YFCF. To which of the given options is GNWZ related, following the same logic?
अंग्रेजी वर्णमाला क्रम के आधार पर ELRU एक निश्चित प्रकार से IPOR से संबंधित है। उसी प्रकार, UBFI, YFCF से संबंधित है। समान तर्क का अनुसरण करते हुए, GNWZ दिए गए विकल्पों में से किससे संबंधित है?

(1) KILO
(2) KWRT
(3) KTRW
(4) KRTW ✔

Q.21 313 is related to 296.3 following a certain logic. Following the same logic, 274 is related to 257.3. To which of the given options is 119 related, following the same logic?
(Note: Operations should be performed on the whole numbers, without breaking down the numbers into their constituent digits. E.g. 13 – Operations on 13 such as adding/subtracting/multiplying to 13 can be performed. Breaking down 13 into 1 and 3 and then performing mathematical operations on 1 and 3 is not allowed.)
एक निश्चित तर्क का अनुसरण करते हुए 313, 296.3 से संबंधित है। समान तर्क का अनुसरण करते हुए, 274, 257.3 से संबंधित है। समान तर्क का अनुसरण करते हुए, 119 दिए गए विकल्पों में से किससे संबंधित है?
(नोट: संक्रियाएँ संख्याओं को उनके घटक अंकों में तोड़े बिना, पूर्ण संख्याओं पर की जानी चाहिए। उदाहरण के लिए 13 – 13 पर संक्रियाएँ जैसे 13 में जोड़ना/घटाना/गुणा करना आदि किया जा सकता है। 13 को 1 और 3 में तोड़ना और फिर 1 और 3 पर गणितीय संक्रियाएँ करना वर्जित है।)

(1) 102.8
(2) 101.9
(3) 102.3 ✔
(4) 102.4

Q.22 What should come in place of '?' in the given series based on the English alphabetical order?
UCB, QGD, MKF, ?, ESJ
अंग्रेजी वर्णमाला क्रम के आधार पर दी गई श्रृंखला में '?' के स्थान पर क्या आना चाहिए?
UCB, QGD, MKF, ?, ESJ

(1) PLS
(2) DSE
(3) KLP
(4) IOH ✔

Q.23 Based on the English alphabetical order, three of the following four are alike in a certain way and thus form a group. Which is the one that does not belong to that group?
(Note: The odd one out is not based on the number of consonants/vowels or their position in the letter cluster.)
अंग्रेजी वर्णमाला क्रम के आधार पर, निम्नलिखित चार में से तीन किसी निश्चित प्रकार से एक समान हैं और इस प्रकार एक समूह बनाते हैं। वह कौन-सा है जो उस समूह से संबंधित नहीं है?
(नोट: असंगत, अक्षर-समूह में व्यंजनों/स्वरों की संख्या या उनके स्थान पर आधारित नहीं है।)

(1) OTW
(2) WBG ✔
(3) FKN
(4) JOR

Q.24 If 2 is subtracted from each odd digit and 2 is added to each even digit in the number 759324759697, then what will be the sum of the digits that are second from the left and second from the right of the new number thus formed?

यदि संख्या 759324759697 में प्रत्येक विषम अंक में से 2 घटाया जाए और प्रत्येक सम अंक में 2 जोड़ा जाए, तो इस प्रकार बनी नई संख्या में बाएँ से दूसरे और दाएँ से दूसरे अंकों का योग क्या होगा?

(1) 9

(2) 14

(3) 10 ✔

(4) 7

Q.25 If 'A' stands for '+', 'B' stands for '−', 'C' stands for '×', and 'D' stands for '÷', then the resultant of which of the following would be 35?

यदि 'A' का अर्थ '+', 'B' का अर्थ '−', 'C' का अर्थ '×' और 'D' का अर्थ '÷' है, तो निम्नलिखित में से किसका परिणाम 35 होगा?

(1) 54 C 2 D 3 A 20 B 4

(2) 72 A 18 B 10 C 2 D 6

(3) 64 D 8 C 6 A 2 B 8

(4) 100 D 2 B 25 A 5 C 2 ✔

Q.26 12 is related to 1728 following a certain logic. Following the same logic, 16 is related to 4096. To which of the following is 30 related, following the same logic?
(NOTE: Operations should be performed on the whole numbers, without breaking down the numbers into their constituent digits. E.g. 13 – Operations on 13 such as adding/subtracting/multiplying etc. to 13, can be performed. Breaking down 13 into 1 and 3 and then performing mathematical operations on 1 and 3 is not allowed.)

एक निश्चित तर्क का अनुसरण करते हुए 12, 1728 से संबंधित है। समान तर्क का अनुसरण करते हुए, 16, 4096 से संबंधित है। समान तर्क का अनुसरण करते हुए, 30 निम्नलिखित में से किससे संबंधित है?
(नोट: संक्रियाएँ संख्याओं को उनके घटक अंकों में तोड़े बिना, पूर्ण संख्याओं पर की जानी चाहिए। उदाहरण के लिए 13 – 13 पर संक्रियाएँ जैसे 13 में जोड़ना/घटाना/गुणा करना आदि किया जा सकता है। 13 को 1 और 3 में तोड़ना और फिर 1 और 3 पर गणितीय संक्रियाएँ करना वर्जित है।)

(1) 400

(2) 8000

(3) 900

(4) 27000 ✔

Q.27 What will come in place of the question mark (?) in the following equation if '+' and '−' are interchanged and '×' and '÷' are interchanged?
15 ÷ 3 + 56 × 8 − 10 = ?

यदि '+' और '−' को आपस में बदल दिया जाए तथा '×' और '÷' को आपस में बदल दिया जाए, तो निम्नलिखित समीकरण में प्रश्न चिह्न (?) के स्थान पर क्या आएगा?
15 ÷ 3 + 56 × 8 − 10 = ?

(1) 49

(2) 51

(3) 48 ✔

(4) 50

Q.28 In the following number-pairs, the second number is obtained by applying certain mathematical operations to the first number. Select the pair in which the numbers are related in the same way as are the numbers of the following pairs.
(NOTE : Operations should be performed on the whole numbers, without breaking down the numbers into its constituent digits. E.g. 13 – Operations on 13 such as adding / subtracting /multiplying etc. to 13 can be performed. Breaking down 13 into 1 and 3 and then performing mathematical operations on 1 and 3 is not allowed)
8, 39 11, 54

निम्नलिखित संख्या-युग्मों में, दूसरी संख्या पहली संख्या पर कुछ निश्चित गणितीय संक्रियाएँ करके प्राप्त की जाती है। उस युग्म का चयन करें जिसमें संख्याएँ उसी प्रकार संबंधित हैं, जिस प्रकार निम्नलिखित युग्मों की संख्याएँ संबंधित हैं।
(नोट: संक्रियाएँ संख्याओं को उनके घटक अंकों में तोड़े बिना, पूर्ण संख्याओं पर की जानी चाहिए। उदाहरण के लिए 13 – 13 पर संक्रियाएँ जैसे 13 में जोड़ना/घटाना/गुणा करना आदि किया जा सकता है। 13 को 1 और 3 में तोड़ना और फिर 1 और 3 पर गणितीय संक्रियाएँ करना वर्जित है)
8, 39 11, 54

(1) 14, 68
(2) 15, 68
(3) 14, 69 ✔
(4) 15, 69

Q.29 What should come in place of the question mark (?) in the given series?
60 65 74 87 104 ?

दी गई श्रृंखला में प्रश्न चिह्न (?) के स्थान पर क्या आना चाहिए?
60 65 74 87 104 ?

(1) 123
(2) 125 ✔
(3) 124
(4) 126

Q.30 Select the letter-cluster from the given options that can replace the question mark (?) in the following series. EJYL, CLWN, ANUP, ? , WRQT

दिए गए विकल्पों में से उस अक्षर-समूह का चयन करें जो निम्नलिखित श्रृंखला में प्रश्न चिह्न (?) का स्थान ले सकता है।
EJYL, CLWN, ANUP, ? , WRQT

(1) XQRS
(2) ZOTQ
(3) YPRS
(4) YPSR ✔

QuickSarkari.com | WhatsApp Channel | Telegram: t.me/quick_sarkari

Q.31 Identify the figure given in the options, which when put in place of the question mark (?) will logically complete the series.

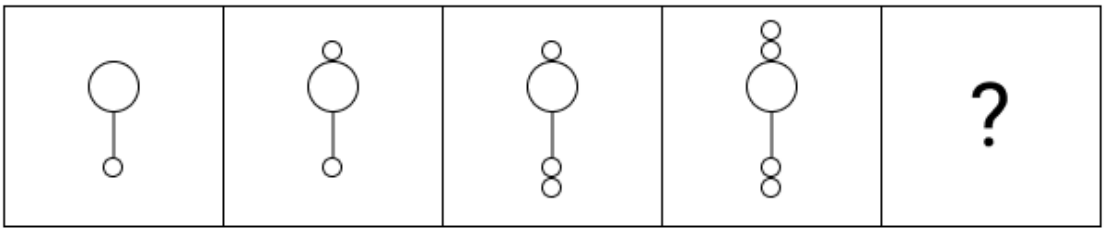

विकल्पों में दी गई उस आकृति की पहचान करें, जिसे प्रश्न चिह्न (?) के स्थान पर रखने पर श्रृंखला तार्किक रूप से पूर्ण हो जाएगी।

(1) 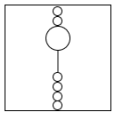

(2) 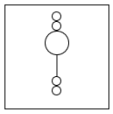

(3) 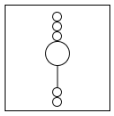

(4) 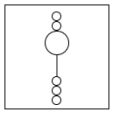 ✔

Q.32 Which of the following letter-number clusters will replace the question mark (?) in the given series to make it logically complete?

JP21, KQ30, LR39, MS48, ?

निम्नलिखित में से कौन-सा अक्षर-संख्या समूह दी गई श्रृंखला को तार्किक रूप से पूर्ण करने के लिए प्रश्न चिह्न (?) का स्थान लेगा?

JP21, KQ30, LR39, MS48, ?

(1) NT57 ✔

(2) NT58

(3) NU57

(4) NU58

Q.33 UA 17 is related to PV 22 in a certain way. In the same way, QT 14 is related to LO 19. To which of the given options is EK 18 related, following the same logic?

UA 17 एक निश्चित प्रकार से PV 22 से संबंधित है। उसी प्रकार, QT 14, LO 19 से संबंधित है। समान तर्क का अनुसरण करते हुए, EK 18 दिए गए विकल्पों में से किससे संबंधित है?

(1) ZE 23

(2) YE 23

(3) ZF 25

(4) ZF 23 ✔

QuickSarkari.com | WhatsApp Channel | Telegram: t.me/quick_sarkari

Q.34 If 'A' stands for '+', 'B' stands for '−', 'C' stands for '×' and 'D' stands for '÷', what will come in place of the question mark (?) in the following equation?
15 A 48 D 6 B 4 C 2 = ?

यदि 'A' का अर्थ '+', 'B' का अर्थ '−', 'C' का अर्थ '×' और 'D' का अर्थ '÷' है, तो निम्नलिखित समीकरण में प्रश्न चिह्न (?) के स्थान पर क्या आएगा?
15 A 48 D 6 B 4 C 2 = ?

(1) 14
(2) 16
(3) 15 ✔
(4) 17

Q.35 Based on the English alphabetical order, three of the following four letter-cluster pairs are alike in a certain way and thus form a group. Which letter-cluster pair DOES NOT belong to that group?
(Note: The odd one out is not based on the number of consonants/vowels or their position in the letter-cluster.)

अंग्रेजी वर्णमाला क्रम के आधार पर, निम्नलिखित चार अक्षर-समूह युग्मों में से तीन किसी निश्चित प्रकार से एक समान हैं और इस प्रकार एक समूह बनाते हैं। कौन-सा अक्षर-समूह युग्म उस समूह से संबंधित नहीं है?
(नोट: असंगत, अक्षर-समूह में व्यंजनों/स्वरों की संख्या या उनके स्थान पर आधारित नहीं है।)

(1) AC-IK
(2) OQ-WY
(3) HJ-PR
(4) VX-EH ✔

Q.36 If 'A' stands for '+' , 'B' stands for '-', 'C' stands for '×' and 'D' stands for '÷ ' , what will come in place of the question mark (?) in the following equation?
33 B 45 D 3 A 11 C 2 = ?

यदि 'A' का अर्थ '+' , 'B' का अर्थ '-', 'C' का अर्थ '×' और 'D' का अर्थ '÷ ' है, तो निम्नलिखित समीकरण में प्रश्न चिह्न (?) के स्थान पर क्या आएगा?
33 B 45 D 3 A 11 C 2 = ?

(1) 36
(2) 40 ✔
(3) 34
(4) 32

Q.37 Select the correct mirror image of the given figure when the mirror is placed at MN as shown below.

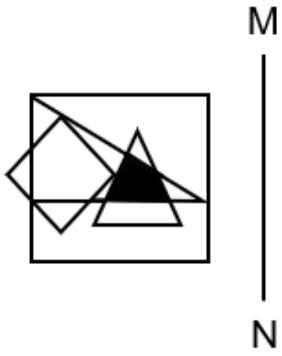

जब दर्पण को नीचे दर्शाए अनुसार MN पर रखा जाए, तो दी गई आकृति के सही दर्पण प्रतिबिंब का चयन करें।

(1) 

(2) 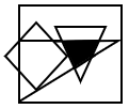

(3)  ✔

(4) 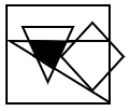

Q.38 96 is related to 156 following a certain logic. Following the same logic, 68 is related to 128. To which of the following is 74 related, following the same logic?
(NOTE : Operations should be performed on the whole numbers, without breaking down the numbers into its constituent digits. E.g. 13 – Operations on 13 such as adding /subtracting /multiplying etc. to 13 can be performed. Breaking down 13 into 1 and 3 and then performing mathematical operations on 1 and 3 is not allowed)

एक निश्चित तर्क का अनुसरण करते हुए 96, 156 से संबंधित है। समान तर्क का अनुसरण करते हुए, 68, 128 से संबंधित है। समान तर्क का अनुसरण करते हुए, 74 निम्नलिखित में से किससे संबंधित है?
(नोट: संक्रियाएँ संख्याओं को उनके घटक अंकों में तोड़े बिना, पूर्ण संख्याओं पर की जानी चाहिए। उदाहरण के लिए 13 – 13 पर संक्रियाएँ जैसे 13 में जोड़ना/घटाना/गुणा करना आदि किया जा सकता है। 13 को 1 और 3 में तोड़ना और फिर 1 और 3 पर गणितीय संक्रियाएँ करना वर्जित है)

(1) 125
(2) 112
(3) **134** ✔
(4) 140

Q.39 Select the number from among the given options that can replace the question mark (?) in the following series. 1330, 1331, 1335, 1344, ?

दिए गए विकल्पों में से उस संख्या का चयन करें जो निम्नलिखित श्रृंखला में प्रश्न चिह्न (?) का स्थान ले सकती है।
1330, 1331, 1335, 1344, ?

(1) 1368
(2) 1369
(3) 1377
(4) **1360** ✔

QuickSarkari.com | WhatsApp Channel | Telegram: t.me/quick_sarkari

Q.40 Select the number from among the given options that can replace the question mark (?) in the following series. 632, 616, 607, 603, ?

दिए गए विकल्पों में से उस संख्या का चयन करें जो निम्नलिखित श्रृंखला में प्रश्न चिह्न (?) का स्थान ले सकती है।

632, 616, 607, 603, ?

(1) 601

(2) 587

(3) **602** ✔

(4) 598

General Awareness

Q.41 Which of the following species is commonly known for conservation in the Gir Forest national Park of India?

भारत के गिर वन राष्ट्रीय उद्यान में निम्नलिखित में से कौन-सी प्रजाति संरक्षण के लिए सामान्यतः जानी जाती है?

(1) **Asiatic Lion / एशियाई शेर** ✔

(2) Indian Elephant / भारतीय हाथी

(3) Snow Leopard / हिम तेंदुआ

(4) Bengal Tiger / बंगाल टाइगर

Q.42 During the Delhi Sultanate, which social division was most significant in distinguishing between the ruling class and the subjects in matters of state policy and administration?

दिल्ली सल्तनत के दौरान, राज्य की नीति और प्रशासन के मामलों में शासक वर्ग और प्रजा के बीच अंतर करने में कौन-सा सामाजिक विभाजन सबसे महत्वपूर्ण था?

(1) **Religion / धर्म** ✔

(2) Region / क्षेत्र

(3) Occupation / व्यवसाय

(4) Caste / जाति

Q.43 Which concept proposed by Sri Lanka has been supported by India to reduce great power rivalry?

श्रीलंका द्वारा प्रस्तावित किस अवधारणा का भारत ने महाशक्तियों की प्रतिद्वंद्विता को कम करने के लिए समर्थन किया है?

(1) **Indian Ocean Zone of Peace / हिंद महासागर शांति क्षेत्र** ✔

(2) South Asian Free Trade Agreement / दक्षिण एशियाई मुक्त व्यापार समझौता

(3) ASEAN Alliance / आसियान गठबंधन

(4) Non-Alignment Treaty / गुटनिरपेक्षता संधि

Q.44 Which river is associated with the Sardar Sarovar Dam, an important multipurpose water and power project in India?

सरदार सरोवर बाँध, जो भारत की एक महत्वपूर्ण बहुउद्देशीय जल एवं विद्युत परियोजना है, किस नदी से संबंधित है?

(1) Krishna / कृष्णा

(2) **Narmada / नर्मदा** ✔

(3) Godavari / गोदावरी

(4) Tapi / तापी

Q.45 The Santhal Rebellion (1855-56) took place in which present-day Indian state?

संथाल विद्रोह (1855-56) वर्तमान भारत के किस राज्य में हुआ था?

(1) Jharkhand / झारखंड ✔

(2) Tamil Nadu / तमिलनाडु

(3) Punjab / पंजाब

(4) Gujarat / गुजरात

Q.46 Right to Work is mentioned under which Article of the Directive Principles of State Policy (DPSP) in the Indian Constitution?

भारतीय संविधान में राज्य के नीति निदेशक तत्वों (DPSP) के किस अनुच्छेद के अंतर्गत काम के अधिकार का उल्लेख किया गया है?

(1) Article 45 / अनुच्छेद 45

(2) Article 43 / अनुच्छेद 43

(3) Article 41 / अनुच्छेद 41 ✔

(4) Article 47 / अनुच्छेद 47

Q.47 The Battle of Talikota in 1565 led to:

1565 में तालीकोटा के युद्ध का परिणाम था:

(1) Chola resurgence / चोलों का पुनरुत्थान

(2) Mughal dominance / मुगलों का प्रभुत्व

(3) Vijayanagara's decline / विजयनगर का पतन ✔

(4) Vijayanagara's expansion / विजयनगर का विस्तार

Q.48 What is the average speed of the south-west monsoon winds during their advance?

दक्षिण-पश्चिम मानसूनी पवनों के आगे बढ़ने के दौरान उनकी औसत गति क्या होती है?

(1) 15 km/h

(2) 5 km/h

(3) 30 km/h ✔

(4) 10 km/h

Q.49 The Temple of Kandariya is a part of which of the following monuments?

कंदरिया मंदिर निम्नलिखित में से किस स्मारक समूह का भाग है?

(1) Group of Monuments at Mahabalipuram / महाबलीपुरम के स्मारक समूह

(2) Khajuraho Group of Monuments / खजुराहो स्मारक समूह ✔

(3) Sacred Ensembles of the Hoysalas / होयसलों के पवित्र समूह

(4) Group of Monuments at Hampi / हम्पी के स्मारक समूह

Q.50 Who reinterpreted Vedanta philosophy to spiritually justify nationalism as service to God?

राष्ट्रवाद को ईश्वर की सेवा के रूप में आध्यात्मिक रूप से न्यायसंगत ठहराने के लिए वेदांत दर्शन की पुनर्व्याख्या किसने की?

(1) Lala Lajpat Rai / लाला लाजपत राय

(2) Bal Gangadhar Tilak / बाल गंगाधर तिलक

(3) Aurobindo Ghose / अरविंद घोष ✔

(4) Gopal Krishna Gokhale / गोपाल कृष्ण गोखले

Quick Sarkari

Q.51 Who led the Ramosi Rebellion against the British in Maharashtra in 1826?
1826 में महाराष्ट्र में अंग्रेजों के विरुद्ध रामोसी विद्रोह का नेतृत्व किसने किया था?

(1) Chittaranjan Das / चित्तरंजन दास
(2) Narayan Rao Patil / नारायण राव पाटिल
(3) Vasudev Balwant Phadke / वासुदेव बलवंत फड़के
(4) **Umaji Naik / उमाजी नाइक ✔**

Q.52 What does the presence of long-barrel carnelian beads indicate about Harappan bead-making?
लंबे बेलनाकार कार्नेलियन मनकों की उपस्थिति हड़प्पाई मनका-निर्माण के बारे में क्या संकेत देती है?

(1) Mass production / बड़े पैमाने पर उत्पादन
(2) **Specialised activity / विशिष्ट गतिविधि ✔**
(3) Ritual significance / अनुष्ठानिक महत्व
(4) Religious symbolism / धार्मिक प्रतीकवाद

Q.53 Which government initiative specifically aims to boost domestic manufacturing and attract global investments in India?
कौन-सी सरकारी पहल विशेष रूप से भारत में घरेलू विनिर्माण को बढ़ावा देने और वैश्विक निवेश आकर्षित करने के उद्देश्य से है?

(1) **Make in India / मेक इन इंडिया ✔**
(2) Sarva Shiksha Abhiyan / सर्व शिक्षा अभियान
(3) Ayushman Bharat / आयुष्मान भारत
(4) Swachh Bharat Mission / स्वच्छ भारत मिशन

Q.54 Which Article of the Constitution of India contains the Fundamental Duties of citizens?
भारत के संविधान के किस अनुच्छेद में नागरिकों के मौलिक कर्तव्य निहित हैं?

(1) **Article 51A / अनुच्छेद 51A ✔**
(2) Article 32 / अनुच्छेद 32
(3) Article 21 / अनुच्छेद 21
(4) Article 19 / अनुच्छेद 19

Q.55 Who were associated with the founding of the Anushilan Samiti in 1902 in present-day Kolkata?
1902 में वर्तमान कोलकाता में अनुशीलन समिति की स्थापना से कौन जुड़े थे?

(1) Lala Lajpat Rai and Bipin Chandra Pal / लाला लाजपत राय और बिपिन चंद्र पाल
(2) **Satish Chandra Bose and Barrister Praanath Mitra / सतीश चंद्र बोस और बैरिस्टर प्रमथनाथ मित्र ✔**
(3) Aurobindo Ghosh and Rash Behari Bose / अरविंद घोष और रासबिहारी बोस
(4) Barindra Ghosh and Jatin Mukherjee / बारींद्र घोष और जतिन मुखर्जी

Q.56 The Directive Principles of State Policy aim to establish which type of state in India?
राज्य के नीति निदेशक तत्वों का उद्देश्य भारत में किस प्रकार के राज्य की स्थापना करना है?

(1) **Welfare state / कल्याणकारी राज्य ✔**
(2) Unitary state / एकात्मक राज्य
(3) Secular state / धर्मनिरपेक्ष राज्य
(4) Federal state / संघीय राज्य

Q.57 The Indian Constitution enables the formation of additional All-India Services through:
भारतीय संविधान अतिरिक्त अखिल भारतीय सेवाओं के गठन को किसके माध्यम से सक्षम बनाता है?

(1) Article 317 / अनुच्छेद 317
(2) Article 321 / अनुच्छेद 321
(3) **Article 312 / अनुच्छेद 312 ✔**
(4) Article 310 / अनुच्छेद 310

Q.58 Which of the following best describes longitude?
निम्नलिखित में से कौन-सा देशांतर का सबसे अच्छा वर्णन करता है?

(1) Circles that decrease in size as they move toward the poles / वृत्त जिनका आकार ध्रुवों की ओर बढ़ने पर घटता जाता है
(2) Imaginary lines that run parallel to the Equator / काल्पनिक रेखाएँ जो भूमध्य रेखा के समानांतर चलती हैं
(3) **Imaginary lines running from North to South Pole / उत्तरी ध्रुव से दक्षिणी ध्रुव तक चलने वाली काल्पनिक रेखाएँ ✔**
(4) Lines that measure the vertical distance above sea level / रेखाएँ जो समुद्र तल से ऊर्ध्वाधर दूरी मापती हैं

Q.59 Maach and Bhavai are traditional theatre forms of which Indian states, respectively?
माच और भवाई क्रमशः किन भारतीय राज्यों के पारंपरिक रंगमंच रूप हैं?

(1) Madhya Pradesh and Punjab / मध्य प्रदेश और पंजाब
(2) Gujarat and Punjab / गुजरात और पंजाब
(3) Gujarat and Madhya Pradesh / गुजरात और मध्य प्रदेश
(4) **Madhya Pradesh and Gujarat / मध्य प्रदेश और गुजरात ✔**

Q.60 If the office of the President of India becomes vacant due to death, resignation, or removal, who acts as the President?
यदि भारत के राष्ट्रपति का पद मृत्यु, त्यागपत्र या पद से हटाए जाने के कारण रिक्त हो जाता है, तो राष्ट्रपति के रूप में कौन कार्य करता है?

(1) **The Vice President of India / भारत के उपराष्ट्रपति ✔**
(2) The Speaker of Lok Sabha / लोकसभा अध्यक्ष
(3) The Chief Justice of India / भारत के मुख्य न्यायाधीश
(4) The Prime Minister of India / भारत के प्रधानमंत्री

Q.61 What prestigious honor was presented to President Droupadi Murmu during her state visit to Portugal in April 2025?
अप्रैल 2025 में पुर्तगाल की राजकीय यात्रा के दौरान राष्ट्रपति द्रौपदी मुर्मू को कौन-सा प्रतिष्ठित सम्मान प्रदान किया गया?

(1) Medal of Democracy / लोकतंत्र पदक
(2) Crown of the City / शहर का मुकुट
(3) Order of the Republic / ऑर्डर ऑफ द रिपब्लिक
(4) **City Key of Lisbon / लिस्बन शहर की चाबी ✔**

Q.62 When was the Munich Security Conference (MSC) 2025 took place?
म्यूनिख सुरक्षा सम्मेलन (MSC) 2025 कब आयोजित हुआ था?

(1) January 10–12, 2025 / 10–12 जनवरी, 2025
(2) **February 14–16, 2025 / 14–16 फरवरी, 2025 ✔**
(3) March 2–4, 2025 / 2–4 मार्च, 2025
(4) April 5–7, 2025 / 5–7 अप्रैल, 2025

Q.63 What was the allocation for the rural jobs guarantee program (MGNREGA) in India's budget for the financial year 2025- 2026?

वित्तीय वर्ष 2025- 2026 के लिए भारत के बजट में ग्रामीण रोजगार गारंटी कार्यक्रम (मनरेगा) के लिए कितना आवंटन किया गया था?

(1) ₹860 billion / ₹860 बिलियन ✔

(2) ₹1.06 trillion / ₹1.06 ट्रिलियन

(3) ₹760 billion / ₹760 बिलियन

(4) ₹960 billion / ₹960 बिलियन

Q.64 In the first phase of the Genome India Project, how many individuals' genomes were sequenced through the collaborative effort of 20 scientific institutions?

जीनोम इंडिया परियोजना के पहले चरण में, 20 वैज्ञानिक संस्थानों के सहयोगात्मक प्रयास से कितने व्यक्तियों के जीनोम का अनुक्रमण किया गया?

(1) 10,000 ✔

(2) 20,000

(3) 5,000

(4) 50,000

Q.65 Who won the Best Actress award at the 97th Academy Awards in 2025?

2025 में 97th अकादमी पुरस्कारों में सर्वश्रेष्ठ अभिनेत्री का पुरस्कार किसने जीता?

(1) Natalie Portman / नताली पोर्टमैन

(2) Margot Robbie / मार्गोट रॉबी

(3) Emma Stone / एम्मा स्टोन

(4) Mikey Madison / मिकी मैडिसन ✔

Q.66 Which of the following is incorrect regarding the speaker of the Lok Sabha?

लोकसभा अध्यक्ष के संबंध में निम्नलिखित में से कौन-सा कथन गलत है?

(1) The Speaker is directly appointed by the President of India / अध्यक्ष की नियुक्ति सीधे भारत के राष्ट्रपति द्वारा की जाती है ✔

(2) The Speaker presides over joint sittings of both Houses of Parliament / अध्यक्ष संसद के दोनों सदनों की संयुक्त बैठकों की अध्यक्षता करता है

(3) He acts as the guardian of the rights of the members / वह सदस्यों के अधिकारों के संरक्षक के रूप में कार्य करता है

(4) He maintains order and decorum in the house / वह सदन में व्यवस्था और मर्यादा बनाए रखता है

Q.67 Which ASEAN–India institutional engagement, reported by the Press Information Bureau in January 2026, was convened specifically to strengthen co-operation in the digital domain between India and ASEAN member states?

पत्र सूचना कार्यालय (PIB) द्वारा जनवरी 2026 में रिपोर्ट किया गया कौन-सा आसियान–भारत संस्थागत जुड़ाव विशेष रूप से भारत और आसियान सदस्य देशों के बीच डिजिटल क्षेत्र में सहयोग को मजबूत करने के लिए आयोजित किया गया था?

(1) ASEAN–India Cultural Ministers' Conference / आसियान–भारत संस्कृति मंत्रियों का सम्मेलन

(2) ASEAN–India Trade Ministers' Meeting / आसियान–भारत व्यापार मंत्रियों की बैठक

(3) ASEAN–India Defence Ministers' Dialogue / आसियान–भारत रक्षा मंत्रियों का संवाद

(4) ASEAN–India Digital Ministers' Meeting / आसियान–भारत डिजिटल मंत्रियों की बैठक ✔

Q.68 A government policy that lowers the value of a country's currency relative to other currencies is called _____.

वह सरकारी नीति जो किसी देश की मुद्रा के मूल्य को अन्य मुद्राओं की तुलना में कम कर देती है, _____ कहलाती है।

(1) appreciation / अधिमूल्यन

(2) revaluation / पुनर्मूल्यन

(3) **devaluation / अवमूल्यन ✔**

(4) depreciation / मूल्यह्रास

Q.69 The interest rate on Ways and Means Advances (WMA) from the Reserve Bank of India is linked to _____.

भारतीय रिज़र्व बैंक से अर्थोपाय अग्रिम (WMA) पर ब्याज दर _____ से जुड़ी होती है।

(1) Marginal Standing Facility / सीमांत स्थायी सुविधा

(2) Reverse Repo rate / रिवर्स रेपो दर

(3) **Repo rate / रेपो दर ✔**

(4) Bank rate / बैंक दर

Q.70 The principle of energy conservation in a hydroelectric dam involves the conversion of _____.

एक जलविद्युत बाँध में ऊर्जा संरक्षण के सिद्धांत में _____ का रूपांतरण शामिल होता है।

(1) electrical energy to mechanical energy / विद्युत ऊर्जा से यांत्रिक ऊर्जा

(2) nuclear energy to thermal energy / नाभिकीय ऊर्जा से तापीय ऊर्जा

(3) **kinetic energy to electrical energy / गतिज ऊर्जा से विद्युत ऊर्जा ✔**

(4) solar energy to thermal energy / सौर ऊर्जा से तापीय ऊर्जा

Q.71 After liberalisation, India experienced an increase in private sector participation. Which indicator best reflects liberalisation's success?

उदारीकरण के बाद, भारत में निजी क्षेत्र की भागीदारी में वृद्धि हुई। कौन-सा संकेतक उदारीकरण की सफलता को सबसे अच्छी तरह दर्शाता है?

(1) Decrease in imports / आयात में कमी

(2) **Increase in GDP growth rate / GDP वृद्धि दर में वृद्धि ✔**

(3) Decline in exports / निर्यात में गिरावट

(4) Rise in subsidy payments / सब्सिडी भुगतान में वृद्धि

Q.72 Which of the following events took place in Davos-Klosters, Switzerland from January 20 to 24, 2025?

20 से 24 जनवरी, 2025 तक दावोस-क्लोस्टर्स, स्विट्जरलैंड में निम्नलिखित में से कौन-सा आयोजन हुआ?

(1) G7 Summit / G7 शिखर सम्मेलन

(2) **World Economic Forum Annual Meeting / विश्व आर्थिक मंच की वार्षिक बैठक ✔**

(3) International Monetary Fund Conference / अंतर्राष्ट्रीय मुद्रा कोष सम्मेलन

(4) United Nations General Assembly / संयुक्त राष्ट्र महासभा

Q.73 Whom did R Praggnanandhaa defeat in the tie-breaker to win the 2025 Tata Steel Masters chess tournament?

आर. प्रज्ञानानंदा ने 2025 टाटा स्टील मास्टर्स शतरंज टूर्नामेंट जीतने के लिए टाई-ब्रेकर में किसे हराया?

(1) **D Gukesh / डी. गुकेश ✔**

(2) Hikaru Nakamura / हिकारू नाकामुरा

(3) Levon Aronian / लेवोन अरोनियन

(4) Magnus Carlsen / मैग्नस कार्लसन

Q.74 The relationship between the crossover frequency and the distance between loci was first suggested in 1913 by:

क्रॉसओवर आवृत्ति और लोकस के बीच की दूरी के मध्य संबंध का सुझाव सर्वप्रथम 1913 में किसने दिया था:

(1) J. Belling / जे. बेलिंग

(2) C. D. Darlington / सी. डी. डार्लिंगटन

(3) A. H. Sturtevant / ए. एच. स्टर्टेवेंट ✔

(4) F. A. Jansens / एफ. ए. जैनसेंस

Q.75 Who won the Indian Super League (ISL) 2024–25 Cup in April 2025?

अप्रैल 2025 में इंडियन सुपर लीग (ISL) 2024–25 कप किसने जीता?

(1) East Bengal FC / ईस्ट बंगाल एफसी

(2) Mohun Bagan SG / मोहन बागान एसजी ✔

(3) Bengaluru FC / बेंगलुरु एफसी

(4) Mumbai City FC / मुंबई सिटी एफसी

Q.76 The Election Commission of India announced launch of which of the following new one-stop platform in May 2025 to integrate and reorient over 40 of its existing mobile and web applications?

भारत निर्वाचन आयोग ने मई 2025 में अपने 40 से अधिक मौजूदा मोबाइल और वेब एप्लिकेशनों को एकीकृत और पुनर्गठित करने के लिए निम्नलिखित में से किस नए वन-स्टॉप प्लेटफॉर्म को लॉन्च करने की घोषणा की?

(1) ElectNet

(2) ElectApp 1.0

(3) ECIAPP

(4) ECINET ✔

Q.77 Which international institution launched the Frontier Seed (Pacific) program in March, 2025 to boost private sector development and economic resilience in the Pacific region?

प्रशांत क्षेत्र में निजी क्षेत्र के विकास और आर्थिक लचीलेपन को बढ़ावा देने के लिए मार्च, 2025 में किस अंतर्राष्ट्रीय संस्था ने फ्रंटियर सीड (पैसिफिक) कार्यक्रम शुरू किया?

(1) Asian Development Bank / एशियाई विकास बैंक ✔

(2) Asian Infrastructure Investment Bank / एशियाई अवसंरचना निवेश बैंक

(3) International Monetary Fund / अंतर्राष्ट्रीय मुद्रा कोष

(4) World Bank / विश्व बैंक

Q.78 Match the biomolecules with their functions:
Biomolecule Function ----------
A) Carbohydrates 1) Store and transmit genetic information
B) Proteins 2) Provide energy and structural support
C) Lipids 3) Serve as enzymes and structural components
D) Nucleic Acids 4) Form cell membranes and store energy

जैव-अणुओं का उनके कार्यों से मिलान कीजिए:
जैव-अणु कार्य ----------
A) कार्बोहाइड्रेट 1) आनुवंशिक सूचना का भंडारण और संचरण करना
B) प्रोटीन 2) ऊर्जा और संरचनात्मक सहायता प्रदान करना
C) लिपिड 3) एंजाइम और संरचनात्मक घटकों के रूप में कार्य करना
D) न्यूक्लिक अम्ल 4) कोशिका झिल्ली का निर्माण करना और ऊर्जा का भंडारण करना

(1) A-2, B-3, C-4, D-1 ✔
(2) A-1, B-4, C-3, D-2
(3) A-4, B-1, C-2, D-3
(4) A-3, B-2, C-1, D-4

Q.79 What is the full form of HSTDV tested by the Defence Research and Development Organisation (DRDO) in March 2025?

मार्च 2025 में रक्षा अनुसंधान एवं विकास संगठन (DRDO) द्वारा परीक्षण किए गए HSTDV का पूर्ण रूप क्या है?

(1) Hypersonic Technology Demonstrator Vehicle / हाइपरसोनिक टेक्नोलॉजी डेमोंस्ट्रेटर व्हीकल ✔
(2) Hyper Test Supersonic Drone Vehicle / हाइपर टेस्ट सुपरसोनिक ड्रोन व्हीकल
(3) High-Security Tactical Defense Vehicle / हाई-सिक्योरिटी टैक्टिकल डिफेंस व्हीकल
(4) High-Speed Test Delivery Vehicle / हाई-स्पीड टेस्ट डिलीवरी व्हीकल

Q.80 During the 2000s, the share of manufactured goods in India's merchandise exports decreased mainly because of _____.

2000 के दशक के दौरान, भारत के वाणिज्यिक निर्यात में विनिर्मित वस्तुओं का हिस्सा मुख्य रूप से _____ के कारण घटा।

(1) Rise in import duties / आयात शुल्क में वृद्धि
(2) Increase in oil exports from India / भारत से तेल निर्यात में वृद्धि
(3) Growth in primary exports like iron ore / लौह अयस्क जैसे प्राथमिक निर्यातों में वृद्धि ✔
(4) Decline in global demand for Indian products / भारतीय उत्पादों की वैश्विक माँग में गिरावट

Arithmetical and Numerical Ability

Q.81 The number 162212443 is divisible by which of the following?

संख्या 162212443 निम्नलिखित में से किससे विभाज्य है?

(1) 27
(2) 17
(3) 19 ✔
(4) 16

Q.82 If 36% of (A+B) is equal to 40% of (A-B), what is the ratio of A to B?

यदि (A+B) का 36%, (A-B) के 40% के बराबर है, तो A और B का अनुपात क्या है?

(1) 3:1

(2) 13:5

(3) 9:2

(4) 19:1 ✔

Q.83 Five years ago from now, the average age of A, B and C was 42 years. After 5 years from now, the average age of A and C will be 69 years. What will be the age (in years) of B, after 2 years from now?

अब से पाँच वर्ष पहले, A, B और C की औसत आयु 42 वर्ष थी। अब से 5 वर्ष बाद, A और C की औसत आयु 69 वर्ष होगी। अब से 2 वर्ष बाद B की आयु (वर्षों में) क्या होगी?

(1) 13

(2) 18

(3) 20

(4) 15 ✔

Q.84 Harish bought an article for ₹329 and sold it to Renu at a loss of 15%. With this amount, he bought another article and sold it at a gain of 52%. Find Harish's overall gain percentage.

हरीश ने एक वस्तु ₹329 में खरीदी और उसे 15% की हानि पर रेनू को बेच दिया। इस राशि से, उसने एक अन्य वस्तु खरीदी और उसे 52% के लाभ पर बेच दिया। हरीश का कुल लाभ प्रतिशत ज्ञात कीजिए।

(1) 29.2% ✔

(2) 24.5%

(3) 32.4%

(4) 25.4%

Q.85 The table below shows the number of students in class X, XI and XII in schools A, B and C.

School → Class ↓	A	B	C
X	500	450	400
XI	250	200	225
XII	150	150	125

The total number of students in class X in all schools is approximately how many times the total number students in class XII in all schools?

नीचे दी गई तालिका स्कूल A, B और C में कक्षा X, XI और XII के विद्यार्थियों की संख्या दर्शाती है।

सभी स्कूलों में कक्षा X के विद्यार्थियों की कुल संख्या, सभी स्कूलों में कक्षा XII के विद्यार्थियों की कुल संख्या की लगभग कितनी गुना है?

(1) 3.2 ✔

(2) 2.6

(3) 3.5

(4) 2.3

Q.86 A dealer buys a washing machine for ₹20,000. He sells it at a 10% loss to another dealer, who sells to a customer at a 20% profit on his cost price. What is the final selling price to the customer?

एक डीलर ₹20,000 में एक वाशिंग मशीन खरीदता है। वह इसे 10% की हानि पर दूसरे डीलर को बेचता है, जो इसे अपने क्रय मूल्य पर 20% के लाभ पर एक ग्राहक को बेचता है। ग्राहक के लिए अंतिम विक्रय मूल्य क्या है?

(1) ₹21,600 ✔

(2) ₹22,500

(3) ₹22,000

(4) ₹21,000

Q.87 A student spent ₹22,618 on college fees, ₹20,550 on personality development classes, and ₹42,820 on coaching classes. The remaining 17% of his total money was kept as cash. Find the total amount he had.

एक विद्यार्थी ने कॉलेज फीस पर ₹22,618, व्यक्तित्व विकास कक्षाओं पर ₹20,550 और कोचिंग कक्षाओं पर ₹42,820 खर्च किए। उसकी कुल राशि का शेष 17% नकद के रूप में रखा गया। उसके पास कुल कितनी राशि थी, ज्ञात कीजिए।

(1) ₹1,03,600 ✔

(2) ₹1,04,800

(3) ₹1,08,900

(4) ₹1,10,500

Q.88 Study the graph and answer the question given below:

The pie-chart drawn below shows the expenses of a family on various items and its savings during the year 1999.

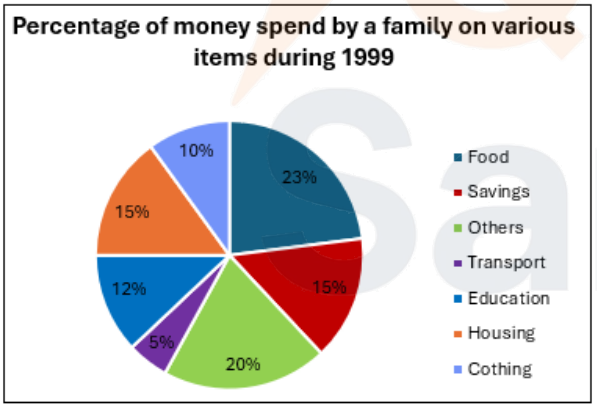

If the total income for the year was ₹66,000, then find the total expenses (in ₹) of housing and clothing.

ग्राफ का अध्ययन कीजिए और नीचे दिए गए प्रश्न का उत्तर दीजिए:

नीचे दिया गया पाई-चार्ट वर्ष 1999 के दौरान एक परिवार के विभिन्न मदों पर व्यय और उसकी बचत को दर्शाता है।

यदि वर्ष की कुल आय ₹66,000 थी, तो आवास और वस्त्र पर कुल व्यय (₹ में) ज्ञात कीजिए।

(1) ₹16,700

(2) ₹16,600

(3) ₹16,400

(4) ₹16,500 ✔

Q.89 The average (rounded off to two decimal places) of the squares of the first 96 natural numbers is:

प्रथम 96 प्राकृत संख्याओं के वर्गों का औसत (दो दशमलव स्थानों तक पूर्णांकित) है:

(1) 3122.17

(2) 3120.17 ✔

(3) 3121.17

(4) 3119.17

Q.90 The LCM of two numbers is 648. If one of the numbers is 9/4 times of the other, what is the larger number?

दो संख्याओं का LCM 648 है। यदि एक संख्या दूसरी संख्या की 9/4 गुनी है, तो बड़ी संख्या क्या है?

(1) 164

(2) 116

(3) **162** ✔

(4) 168

Q.91 The number 674849 is divisible by which of the following?

संख्या 674849 निम्नलिखित में से किससे विभाज्य है?

(1) 3

(2) **7** ✔

(3) 13

(4) 11

Q.92 If the population of a village increases by 2% every year, and the current population is 20,808, what was 45% of the population 2 years ago?

यदि किसी गाँव की जनसंख्या प्रति वर्ष 2% बढ़ती है, और वर्तमान जनसंख्या 20,808 है, तो 2 वर्ष पहले की जनसंख्या का 45% क्या था?

(1) **9,000** ✔

(2) 4,500

(3) 6,000

(4) 7,500

Q.93 Simplify: 25 – [20 – {10 – (7 – 5 – 3)}

सरल कीजिए: 25 – [20 – {10 – (7 – 5 – 3)}

(1) 14

(2) 17

(3) 15

(4) **16** ✔

Q.94 The H.C.F. and L.C.M. of two numbers are 3 and 516, respectively. One number is 129. Find the other number.

दो संख्याओं का म.स. (H.C.F.) और ल.स. (L.C.M.) क्रमशः 3 और 516 है। एक संख्या 129 है। दूसरी संख्या ज्ञात कीजिए।

(1) **12** ✔

(2) 78

(3) 60

(4) 18

Q.95 The average of 6.5, 10.8, 20.4 and a is 16. The value of a is:

6.5, 10.8, 20.4 और a का औसत 16 है। a का मान है:

(1) 28.3

(2) 27.3

(3) **26.3** ✔

(4) 25.3

Quick Sarkari

Q.96 If the cube root of a number is 11, then what is the number?

यदि किसी संख्या का घनमूल 11 है, तो वह संख्या क्या है?

(1) 331

(2) 1133

(3) **1331** ✔

(4) 121

Q.97 Mohan invests a sum of ₹6600 and Varun invests a sum of ₹9800 at the same rate of simple interest per annum. If, at the end of 3 years, Varun gets ₹480 more interest than Mohan, then find the rate of interest per annum (in percentage).

मोहन ₹6600 की राशि और वरुण ₹9800 की राशि साधारण ब्याज की समान वार्षिक दर पर निवेश करते हैं। यदि 3 वर्ष के अंत में, वरुण को मोहन से ₹480 अधिक ब्याज मिलता है, तो वार्षिक ब्याज दर (प्रतिशत में) ज्ञात कीजिए।

(1) 4

(2) **5** ✔

(3) 3

(4) 7

Q.98 Simplify: √169 + √(0.0144) − √(7.29)

सरल कीजिए: √169 + √(0.0144) − √(7.29)

(1) **10.42** ✔

(2) 11.42

(3) 9.42

(4) 12.42

Q.99 What is the sum of the cubes of the first 15 natural numbers?

प्रथम 15 प्राकृत संख्याओं के घनों का योग क्या है?

(1) 1260

(2) **14400** ✔

(3) 1240

(4) 1230

Q.100 A village has a population of 2,00,000. The population grows by 10% during the first year and by 20% during the second year. In the third year, due to a large-scale migration of residents, the population decreases by 5%. What will be the population of the village at the end of 3 years?

एक गाँव की जनसंख्या 2,00,000 है। पहले वर्ष के दौरान जनसंख्या 10% और दूसरे वर्ष के दौरान 20% बढ़ती है। तीसरे वर्ष में, निवासियों के बड़े पैमाने पर प्रवास के कारण जनसंख्या 5% घट जाती है। 3 वर्ष के अंत में गाँव की जनसंख्या कितनी होगी?

(1) 1,50,000

(2) **2,50,800** ✔

(3) 2,45,000

(4) 2,55,000

Q.101 A can do a work in 14 days and B in 24 days. If they work on it together for 5 days, then what fraction of the work is left?

A किसी कार्य को 14 दिनों में और B उसे 24 दिनों में कर सकता है। यदि वे उस पर 5 दिनों तक एक साथ कार्य करते हैं, तो कार्य का कितना भाग शेष रह जाता है?

(1) 73/168 ✔

(2) 83/168

(3) 79/168

(4) 71/168

Q.102 A cloth merchant announced a discount scheme on different items as given below.

(i) 30% on silk sarees with marked price ₹16,000 per saree.

(ii) 20% on dress materials with marked price ₹1,800 per one set.

(iii) 5% on dhotis with marked price ₹640 per one dhoti.

If a family bought 6 silk sarees, 10 dress materials and 20 dhotis, what is the total amount of discount does the family receive?

एक कपड़ा व्यापारी ने नीचे दिए अनुसार विभिन्न वस्तुओं पर छूट योजना की घोषणा की।

(i) ₹16,000 प्रति साड़ी अंकित मूल्य वाली रेशमी साड़ियों पर 30%।

(ii) ₹1,800 प्रति सेट अंकित मूल्य वाली ड्रेस सामग्री पर 20%।

(iii) ₹640 प्रति धोती अंकित मूल्य वाली धोतियों पर 5%।

यदि एक परिवार ने 6 रेशमी साड़ियाँ, 10 ड्रेस सामग्री और 20 धोतियाँ खरीदीं, तो परिवार को कुल कितनी छूट प्राप्त होती है?

(1) ₹33,040 ✔

(2) ₹40,560

(3) ₹29,760

(4) ₹32,600

Q.103 A solid metallic cylindrical rod of length 21 cm and diameter 6 cm is melted and recast into small solid cubes, each with a side of 3 cm. How many such cubes can be made from the rod?

(Use π = 22/7)

21 cm लंबाई और 6 cm व्यास वाली एक ठोस धात्विक बेलनाकार छड़ को पिघलाकर छोटे ठोस घनों में ढाला जाता है, जिनमें से प्रत्येक की भुजा 3 cm है। छड़ से ऐसे कितने घन बनाए जा सकते हैं?

(π = 22/7 का प्रयोग करें)

(1) 24

(2) 20

(3) 18

(4) 22 ✔

Q.104 A tap fills a tank in 18 hours. Another tap empties the full tank in 54 hours. How long (in hours) will it take to fill two- thirds of the tank, if the tank is empty initially and both the taps are opened together?

एक नल किसी टंकी को 18 घंटे में भरता है। दूसरा नल पूरी भरी टंकी को 54 घंटे में खाली करता है। यदि टंकी प्रारंभ में खाली है और दोनों नल एक साथ खोल दिए जाते हैं, तो टंकी का दो- तिहाई भाग भरने में कितना समय (घंटों में) लगेगा?

(1) 18 ✔

(2) 72

(3) 36

(4) 54

Q.105 What is the total surface area of a right circular cylinder (in cm^2) whose height and diameter are 25 cm and 42 cm, respectively (use π = 22/7)?

उस लंब वृत्तीय बेलन का कुल पृष्ठीय क्षेत्रफल (cm^2 में) क्या है, जिसकी ऊँचाई और व्यास क्रमशः 25 cm और 42 cm हैं (π = 22/7 का प्रयोग करें)?

(1) 7058
(2) **6072 ✔**
(3) 5078
(4) 8078

Q.106 A cuboid has a space diagonal measuring 11 cm and a total surface area of 320 cm^2. What is the sum of its length, width, and height?

एक घनाभ का विकर्ण 11 cm है और उसका कुल पृष्ठीय क्षेत्रफल 320 cm^2 है। उसकी लंबाई, चौड़ाई और ऊँचाई का योग क्या है?

(1) 20 cm
(2) 22 cm
(3) 19 cm
(4) **21 cm ✔**

Q.107 Find the perimeter of a rectangular plot whose length is 78 m and breadth is 43 m.

एक आयताकार भूखंड का परिमाप ज्ञात कीजिए जिसकी लंबाई 78 m और चौड़ाई 43 m है।

(1) **242 m ✔**
(2) 214 m
(3) 236 m
(4) 268 m

Q.108 A cone has radius 7 cm and height 24 cm. Find its curved surface area. (Use π = 22/7)

एक शंकु की त्रिज्या 7 cm और ऊँचाई 24 cm है। इसका वक्र पृष्ठीय क्षेत्रफल ज्ञात कीजिए। (π = 22/7 का प्रयोग करें)

(1) **550 cm^2 ✔**
(2) 400 cm^2
(3) 520 cm^2
(4) 480 cm^2

Q.109 Ravi and Sheila work on alternate days with Sheila beginning the work on the first day. Ravi alone can complete the same work in 24 days. If the work gets completed in 11 1/3 days, then Sheila alone can complete 7/9 th part of the original work in:

रवि और शीला एकांतर दिनों में कार्य करते हैं, जिसमें पहले दिन कार्य शीला शुरू करती है। रवि अकेले उसी कार्य को 24 दिनों में पूरा कर सकता है। यदि कार्य 11 1/3 दिनों में पूरा हो जाता है, तो शीला अकेले मूल कार्य का 7/9 भाग कितने समय में पूरा कर सकती है:

(1) **6 days / 6 दिन ✔**
(2) 5 days / 5 दिन
(3) 7 days / 7 दिन
(4) 4 days / 4 दिन

Q.110 An open cuboidal tank has an internal length of 41 m, an internal breadth of 49 m, and an internal height of 5 m. What is its internal surface area (in m^2)?

एक खुली घनाभाकार टंकी की आंतरिक लंबाई 41 m, आंतरिक चौड़ाई 49 m और आंतरिक ऊँचाई 5 m है। इसका आंतरिक पृष्ठीय क्षेत्रफल (m^2 में) क्या है?

(1) 2709

(2) 3009

(3) **2909** ✔

(4) 2809

Q.111 Two numbers are in the ratio of 6:5. If 4 added to each of the number the ratio becomes 7:6. Find the original greater number.

दो संख्याएँ 6:5 के अनुपात में हैं। यदि प्रत्येक संख्या में 4 जोड़ दिया जाए, तो अनुपात 7:6 हो जाता है। मूल बड़ी संख्या ज्ञात कीजिए।

(1) 18

(2) **24** ✔

(3) 26

(4) 22

Q.112 The curved surface area of a cylinder having radius 15 cm and height 46 cm is:

15 cm त्रिज्या और 46 cm ऊँचाई वाले एक बेलन का वक्र पृष्ठीय क्षेत्रफल है:

(1) **1380 π cm^2** ✔

(2) 1463 π cm^2

(3) 1298 π cm^2

(4) 1441 π cm^2

Q.113 Laxmi invested a total amount of ₹13,90,000 in two different schemes A and B at the simple interest rate of 14% p.a. and 11% p.a., respectively. If the total amount of simple interest earned in 2 years is ₹3,50,800, then the amount (in ₹) invested in scheme B was:

लक्ष्मी ने कुल ₹13,90,000 की राशि दो अलग-अलग योजनाओं A और B में क्रमशः 14% वार्षिकऔर 11% वार्षिक साधारण ब्याज दर पर निवेश की। यदि 2 वर्षों में अर्जित साधारण ब्याज की कुल राशि ₹3,50,800 है, तो योजना B में निवेश की गई राशि (₹ में) थी:

(1) **6,40,000** ✔

(2) 5,40,000

(3) 7,00,000

(4) 6,00,000

Q.114 A sum of money is to be distributed among A, B, C, D in the proportion of 5 : 2 : 4 : 3. If C gets ₹ 20,000 more than D, what is B's share (in ₹)?

एक धनराशि को A, B, C, D के बीच 5 : 2 : 4 : 3 के अनुपात में बाँटा जाना है। यदि C को D से ₹ 20,000 अधिक मिलते हैं, तो B का हिस्सा (₹ में) क्या है?

(1) 38,000

(2) 45,000

(3) 42,000

(4) **40,000** ✔

Q.115 Three numbers are in the ratio of 2:5:40. If 12 is added to the smallest number and 60 is subtracted from the largest number, the new numbers become in the ratio of 2:3:20. What is the sum of the initial three numbers?

तीन संख्याएँ 2:5:40 के अनुपात में हैं। यदि सबसे छोटी संख्या में 12 जोड़ा जाए और सबसे बड़ी संख्या में से 60 घटाया जाए, तो नई संख्याएँ 2:3:20 के अनुपात में हो जाती हैं। तीनों प्रारंभिक संख्याओं का योग क्या है?

(1) 473

(2) 423 ✔

(3) 375

(4) 400

Q.116 During a festive sale, a wholesaler offered a deal where a customer could buy 25 shirts for the price of 20 shirts at the marked price. What is the effective discount percentage offered on each shirt?

एक त्योहारी सेल के दौरान, एक थोक विक्रेता ने एक सौदे की पेशकश की, जिसमें ग्राहक अंकित मूल्य पर 20 शर्टों की कीमत में 25 शर्ट खरीद सकता था। प्रत्येक शर्ट पर दी गई प्रभावी छूट प्रतिशत क्या है?

(1) 25%

(2) 20% ✔

(3) 10%

(4) 15%

Q.117 Arav, Akhil and Amar started running on a circular track of length 3000 m at the same time from the same point with constant speeds 45 km/hr., 15 km/hr. and 35 km/hr. respectively. While Arav and Amar are running in same direction, Akhil is running in the opposite direction. How many complete rounds has Amar covered when they met for the 1st time on circumference of circular track?

आरव, अखिल और अमर ने 3000 m लंबाई वाले एक वृत्ताकार पथ पर एक ही समय पर एक ही बिंदु से क्रमशः 45 km/hr., 15 km/hr. और 35 km/hr. की स्थिर चाल से दौड़ना शुरू किया। आरव और अमर एक ही दिशा में दौड़ रहे हैं, जबकि अखिल विपरीत दिशा में दौड़ रहा है। जब वे वृत्ताकार पथ की परिधि पर पहली बार मिले, तब तक अमर ने कितने पूर्ण चक्कर लगाए थे?

(1) 4 rounds / 4 चक्कर

(2) 3 rounds / 3 चक्कर ✔

(3) 6 rounds / 6 चक्कर

(4) 5 rounds / 5 चक्कर

Q.118 Two numbers are in the ratio 16 : 5. If the first number is increased by 29 and the second number is decreased by 27, then the ratio becomes 13 : 4. What is the sum of the original two numbers?

दो संख्याएँ 16 : 5 के अनुपात में हैं। यदि पहली संख्या में 29 की वृद्धि की जाए और दूसरी संख्या में 27 की कमी की जाए, तो अनुपात 13 : 4 हो जाता है। मूल दोनों संख्याओं का योग क्या है?

(1) 9245

(2) 9500

(3) 10120

(4) 9807 ✔

Q.119 The radius of the base of a solid cone is 7 cm and its height is 21 cm. It is cut into 3 parts by 2 cuts which are parallel to its base. The cuts are at the height of 6 cm and 13 cm from the base, respectively. Find the curved surface area (in cm^2) of the bottom part (use π = 3.14).

एक ठोस शंकु के आधार की त्रिज्या 7 cm और उसकी ऊँचाई 21 cm है। इसे इसके आधार के समानांतर 2 कट द्वारा 3 भागों में काटा जाता है। कट आधार से क्रमशः 6 cm और 13 cm की ऊँचाई पर हैं। सबसे निचले भाग का वक्र पृष्ठीय क्षेत्रफल (cm^2 में) ज्ञात कीजिए (π = 3.14 का प्रयोग करें)।

(1) 55.45√10

(2) 75.36√10 ✔

(3) 65.56√5

(4) 85.63√5

Q.120 Two persons X and Y start running a circular track simultaneously in the same direction and they take 6 minutes and 10 minutes to complete one round. Find (1) the time taken by them to meet for the first time and (2) time taken by them to meet for the first time at the starting point.

दो व्यक्ति X और Y एक वृत्ताकार पथ पर एक साथ एक ही दिशा में दौड़ना शुरू करते हैं और एक चक्कर पूरा करने में उन्हें क्रमशः 6 मिनट और 10 मिनट लगते हैं। ज्ञात कीजिए (1) उन्हें पहली बार मिलने में लगा समय और (2) उन्हें प्रारंभिक बिंदु पर पहली बार मिलने में लगा समय।

(1) (1) 18 minutes; (2) 28 minutes / (1) 18 मिनट; (2) 28 मिनट

(2) (1) 21 minutes; (2) 32 minutes / (1) 21 मिनट; (2) 32 मिनट

(3) (1) 15 minutes; (2) 30 minutes / (1) 15 मिनट; (2) 30 मिनट ✔

(4) (1) 12 minutes; (2) 36 minutes / (1) 12 मिनट; (2) 36 मिनट

English Language and Comprehension

Q.121 Choose the correct passive form of the given sentence.
They will complete the project by next week.

(1) The project completed by next week.

(2) The project will be completed by next week. ✔

(3) The project will completed by next week.

(4) The project is completed by next week.

Q.122 Choose the correct option to complete the sentence.
Joining ___ NGO can provide students with practical experience in community development and advocacy.

(1) the

(2) a

(3) no article required

(4) an ✔

Q.123 Choose the option that shows the transformation from indirect to the direct speech.
He said that he was busy then.

(1) He told that, "I am busy now."

(2) He says me, "I am busy now."

(3) He said that "I am busy now."

(4) He said, "I am busy now." ✔

Q.124 Fill in the blank with the correct option to complete the sentence using direct speech.
Indirect Speech: He told me that he would call me the next day.
He told me, "I _____ you tomorrow."

(1) will call ✔
(2) would call
(3) had called
(4) shall call

Q.125 Select the correct option to complete the sentence.
Her _____ dedication to providing free education for the underprivileged inspired others to follow her example.

(1) casual
(2) apathetic
(3) indifferent
(4) zealous ✔

Q.126 Choose the correct form of the present perfect continuous tense to fill in the blank.
Over the past few months, the research team _____ on developing a more efficient algorithm, despite numerous technical setbacks.

(1) had been working
(2) has worked
(3) have been working
(4) has been working ✔

Q.127 A statement divided into different segments is given below. The first segment is fixed, rearrange the other segments to form a coherent statement.
The ambitious project, requiring collaboration
(A) achieved a milestone hailed as
(B) nightmares, cultural misunderstandings, and
(C) political obstacles, yet ultimately
(D) among international agencies, faced logistical
(E) unprecedented in modern history

(1) DBCAE ✔
(2) BCDEA
(3) ABCDE
(4) EDCAB

Q.128 Choose the correct word to substitute the group of words given below.
The scientific study of insects

(1) Entomology ✔
(2) Ecology
(3) Ornithology
(4) Botany

Q.129 Identify the incorrect sentence in active voice.

(1) She writes a letter to her friend every week.

(2) The results will be announced by the committee tomorrow. ✔

(3) They completed the project on time.

(4) The committee will announce the results tomorrow.

Q.130 Choose the correct alternative to complete the sentence.
Her father, _____ his death, prepared a will and secured it away, lest it be misused.

(1) under

(2) after

(3) before ✔

(4) across

Q.131 Parts of a sentence are given below. While the first part is in the correct place, the remaining parts (labelled A, B, C, and D) are jumbled up. Arrange the parts in the correct order to form a meaningful and coherent sentence.
(1) The dump yard was a pathetic sight
(A) obscuring the neighbourhood
(B) with mountains of garbage reaching upwards to the skyline
(C) like the plague
(D) and a stench so intolerable that people avoided it

(1) ADBC

(2) BADC ✔

(3) BCDA

(4) CDBA

Q.132 Choose the correct word to complete the sentence.
He was accused _____ stealing confidential documents.

(1) about

(2) for

(3) of ✔

(4) with

Q.133 From the options provided, select the word that best replaces the underlined group of words in the sentence. A strong feeling of dislike or prejudice against people from other countries is becoming a concern in several parts of the world.

(1) Misogyny

(2) Philanthropy

(3) Xenophobia ✔

(4) Misanthropy

Quick Sarkari

Q.134 In the given question, a statement divided into different segments is given. Rearrange all the segments to form a coherent statement:
(A) and the feedback loops inherent in
(B) arctic permafrost thawing
(C) accelerate global warming significantly
(D) releasing vast quantities of methane
(E) into the upper atmosphere

(1) D, B, A, E, C
(2) C, D, E, A, B
(3) **B, A, D, E, C ✔**
(4) A, B, C, D, E

Q.135 Choose the correct one-word substitution for the underlined segment.
The critic dismissed the theory as lacking intellectual depth.

(1) redundant
(2) obscure
(3) **superficial ✔**
(4) derivative

Q.136 Complete the sentence with the most suitable word.
He offered me ___ honest explanation after the misunderstanding.

(1) a
(2) the
(3) no word needed
(4) **an ✔**

Q.137 Select the option that correctly converts the following sentence into the past tense.
She has walked to the park yesterday.

(1) She will walk to the park yesterday.
(2) She walking to the park yesterday.
(3) She walks to the park yesterday.
(4) **She walked to the park yesterday. ✔**

Q.138 Fill in the blank with the suitable word.
The manager conducted the office work _____.

(1) **capably ✔**
(2) suddenly
(3) eventually
(4) oddly

QuickSarkari.com | WhatsApp Channel | Telegram: t.me/quick_sarkari

Q.139 Rearrange the following segments to form a meaningful sentence. Segment D is the anchor and must remain in the same position.
A. interpretation would have
B. been valid the overall
C. had the underlying assumptions
D. differed considerably in scope

(1) ACBD
(2) ABCD
(3) BACD
(4) **CABD ✔**

Q.140 In the following sentence, replace the highlighted phrase with the most appropriate one-word substitution.
The committee dismissed the report as irrelevant to the issue under discussion.

(1) incidental
(2) superfluous
(3) **extraneous ✔**
(4) peripheral

Q.141 Replace the underlined text with the most appropriate idiom from the options given below.
Formulaic action movies like these are extremely common; why don't we watch something else?

(1) once in a blue moon
(2) two peas in a pod
(3) under the weather
(4) **a dime a dozen ✔**

Q.142 Select the most appropriate antonym of the underlined word in the given sentence.
He relinquished his share in the paternal property.

(1) replenished
(2) abandoned
(3) **retained ✔**
(4) abstained

Q.143 Select the most appropriate idiom that can substitute the underlined segment in the given sentence.
The rejection of his research proposal came to him as a sudden and sad occurrence.

(1) **a bolt from the blue ✔**
(2) an apple of discord
(3) a chip of the old block
(4) a fly in the ointment

Q.144 Identify the antonym of the underlined word as used in the sentence.
The policy was criticised for its stringent regulatory framework.

(1) restrictive
(2) **lenient ✔**
(3) severe
(4) rigid

Q.145 Select the most appropriate idiom/proverb that can substitute the underlined segment in the given sentence.
She was very careful about her work because she believed that taking small precautions early can prevent bigger problems later.

(1) the proof of the pudding is in eating
(2) a rolling stone gathers no moss
(3) a little knowledge is a dangerous thing
(4) an ounce of prevention is worth a pound of cure ✔

Q.146 In the following sentence, identify the ANTONYM of the highlighted word:
Her explanation was so recondite that only specialists could follow it.

(1) Lengthy
(2) Accessible ✔
(3) Abstract
(4) Tentative

Q.147 Identify the synonym of the underlined word as used in the sentence.
The author's argument is lucid, despite dealing with highly abstract concepts.

(1) obscure
(2) tentative
(3) verbose
(4) clear ✔

Q.148 Select the wrongly spelt word.

(1) Exercise
(2) Fluorescent
(3) Collaegue ✔
(4) Assassination

Q.149 Select the INCORRECTLY spelt word.

(1) Capitulate
(2) Forbearance
(3) Comensurrate ✔
(4) Garrulous

Q.150 Choose the proverb that best substitutes the underlined segment.
In life, it's natural to hope for the best, especially when things seem to be going our way. However, it's important to stay grounded and realistic in our expectations. Don't assume that something good will happen before it actually does, as it might lead to disappointment. By managing our hopes wisely and preparing for all outcomes, we protect our emotional well- being and handle both success and setbacks with greater resilience.

(1) When in Rome, do as the Romans do
(2) Don't count your chickens before they hatch ✔
(3) All that glitters is not gold
(4) Too many cooks spoil the broth

QuickSarkari.com | WhatsApp Channel | Telegram: t.me/quick_sarkari

Q.151 Which of the following can be inferred from the passage?

(1) The war has reduced tensions between Afghanistan and Pakistan considerably

(2) Economic cooperation between India and Pakistan has strengthened recently

(3) Regional alliances are increasing the strategic significance of the conflict ✔

(4) International organisations have successfully resolved the border dispute peacefully

---

Q.152 According to the passage, which of the following statements is correct?

(1) India and China jointly mediated peace talks between the two countries

(2) Pakistan fully supports Afghanistan's improving relationship with India

(3) The TTP was created after the Afghanistan-Pakistan war started officially

(4) The Taliban returned to power in Kabul during the year 2021 ✔

Q.153 Which of the following situations best reflects the summary of the passage?

(1) A trade agreement succeeds after regional organisations remove economic restrictions

(2) A sports rivalry becomes popular after international media coverage increases rapidly

(3) Two neighbouring states improve relations through cultural festivals and tourism exchanges

(4) A local border dispute expands because larger nations support opposing sides ✔

Q.154 Which of the following best expresses the central theme of the passage?

(1) Economic globalisation has reduced military tensions between neighbouring Asian states

(2) Regional rivalries and strategic alliances are intensifying the Afghanistan- Pakistan conflict ✔

(3) Religious reforms are transforming political institutions across South and Central Asia

(4) Technological competition is replacing military confrontation in international relations

---

Q.155 Which of the following words is the closest antonym of 'dissent' as used in the passage?

(1) Worry

(2) Consequence

(3) Abuse

(4) Agreement ✔

Q.156 Which of the following would be the most suitable title for the passage?

(1) Political Influences Responsible for Changes in Modern Board Games

(2) Marketing Failures Behind the Commercialisation of Family Card Games

(3) The Global Expansion and Lasting Popularity of the Uno Card Game ✔

(4) The Decline of Traditional Indoor Games in the Digital Entertainment Era

---

Q.157 Which of the following best summarises the passage?

(1) Traditional games disappeared from homes because portable card games replaced them entirely.

(2) Uno evolved from a small independently sold game into a globally successful brand. ✔

(3) Mattel discontinued older Uno editions after customers demanded modern digital versions.

(4) Uno became successful mainly because expensive editions attracted collectors worldwide.

Q.158 Which of the following can be inferred from the passage?

(1) Uno's affordability and adaptability have contributed significantly to its continued relevance. ✔

(2) The success of Uno depends entirely on political themes and specialised editions.

(3) Customers generally prefer expensive strategy games over portable family card games.

(4) Traditional games are unlikely to survive because digital entertainment dominates globally.

Q.159 Which of the following situations best reflects a real-world application of the ideas discussed in the passage?

(1) A political organisation launches campaigns promoting electronic gaming competitions nationally.

(2) A university replaces all physical libraries with exclusively digital learning resources.

(3) **A company redesigns a classic product to appeal to diverse consumer preferences globally. ✔**

(4) A luxury brand limits production to increase the exclusivity of its products worldwide.

Q.160 Which of the following best describes the tone of the passage?

(1) Humorous and exaggerated with playful criticism of modern consumer behaviour

(2) Critical and argumentative with strong objections to commercial gaming industries

(3) **Analytical and informative with emphasis on historical growth and market relevance ✔**

(4) Emotional and nostalgic with personal memories connected to childhood experiences

Hindi Language and Comprehension

Q.161 उचित क्रिया-विशेषण शब्द से वाक्य पूरा कीजिए।
' क्या वह _____ चला गया?'

(1) **सचमुच ✔**

(2) प्रायः

(3) कदाचित

(4) शायद

Q.162 निम्नलिखित वाक्य को कालवाचक क्रिया-विशेषण द्वारा पूर्ण करें।
मधु का ____ विवाह है।

(1) **परसों ✔**

(2) फटाफट

(3) शुभ

(4) कैसा

Q.163 रिक्त स्थान के लिए उपयुक्त क्रिया-विशेषण का चयन दिए गए विकल्पों में से करें।
उसने अपने बच्चों को बहुत..... से पाला है।

(1) कठिन

(2) **कठिनाई ✔**

(3) करना

(4) कमठ

Q.164 निम्नलिखित वाक्यांश के लिए एक शब्द चुनिए ।
जिसको रोका न जा सके

(1) असंभव

(2) अनुपम

(3) **अटल ✔**

(4) ईर्ष्यालु

Q.165 निम्नलिखित वाक्य को उचित कारक द्वारा पूर्ण करें।
चक्की __ चावल पीस लो।

(1) की
(2) **से ✔**
(3) में
(4) पर

Q.166 निम्नांकित विकल्पों में से उचित क्रिया- विशेषण का चयन करके वाक्य पूर्ण करें- कवि ने अपनी भावनाओं को अपने शब्दों में .....ढंग से प्रस्तुत किया।

(1) **प्रभावशाली ✔**
(2) विकसित
(3) प्रभावित
(4) प्रभाव

Q.167 नीचे दिए गए किस वाक्य में 'बढ़ावा' का पर्यायवाची प्रयुक्त हुआ है ?

(1) बड़ों का सम्मान करना चाहिए।
(2) बच्चों को अनुशासन सिखाना चाहिए।
(3) झूठ नहीं बोलना चाहिए।
(4) **बच्चों को खेलकूद में प्रोत्साहन देना चाहिए। ✔**

Q.168 निम्नलिखित अनुच्छेद के वाक्य को उचित क्रम में लिखें जिससे एक सही अनुच्छेद का निर्माण हो-
1. की स्थिति उस वृक्ष के
2. समृद्ध और गुणवान व्यक्ति
3. लगने पर झुकता चला जाता है
4. समान होती है, जो अधिकाधिक फल

(1) 1, 3, 2, 4
(2) 3, 1, 4, 2
(3) 4, 1, 2, 3
(4) **2, 1, 4, 3 ✔**

Q.169 'दूसरों पर आश्रित रहने वाला' वाक्यांश के लिए सार्थक शब्द का चुनाव कीजिए।

(1) स्वतंत्र
(2) स्वावलंबी
(3) आत्मनिर्भर
(4) **परावलंबी ✔**

Q.170 दिये गये वाक्य को पूर्ण करने के लिए सबसे उपयुक्त विशेषण का चयन करें- समुद्र के किनारे सूर्यास्त का दृश्य बहुत _____ और मनमोहक होता है।

(1) **सुंदर ✔**
(2) उच्च
(3) बुलंद
(4) शिखर

QuickSarkari.com | WhatsApp Channel | Telegram: t.me/quick_sarkari

Q.171 सही क्रिया विशेषण को चुनकर वाक्य पूर्ण कीजिए लड़की _____ गई थी ।

(1) अचानक ✔

(2) ठीक

(3) मानो

(4) मात्र

Q.172 'अनय घर मे सबसे छोटा है' उपर्युक्त वाक्य मे रेखांकित शब्द का विलोम है-

(1) मरा

(2) कड़ा

(3) बड़ा ✔

(4) निन्दा

Q.173 दिए गए विकल्पों में से सही पद -क्रम वाले वाक्य का चयन कीजिए।

(1) निधन क्षति हुई से देश की अपूर्णीय उनके है ।

(2) अपूर्णीय उनके निधन से देश की क्षति हुई है ।

(3) से देश की अपूर्णीय उनके निधन क्षति हुई है ।

(4) उनके निधन से देश की अपूर्णीय क्षति हुई है। ✔

Q.174 निम्नलिखित वाक्य में उचित कारक का प्रयोग कर वाक्य पूर्ण करें:- गर्मी ____ उसका चेहरा तमतमाया हुआ था

(1) से ✔

(2) के लिए

(3) को

(4) पर

Q.175 दिए गए वाक्यों के लिखने का सही क्रम क्या है?

1. एक दिन रात में पड़े-पड़े ही उसकी मृत्यु हो गई।
2. किसी घने जंगल में एक हाथी रहता था।
3. वह बहुत बूढ़ा तथा कमजोर हो चुका था।
4. एक लोमड़ी भोजन की खोज में उधर से गुजरी।

(1) 4123

(2) 3124

(3) 4312

(4) 2314 ✔

Q.176 निम्नलिखित वाक्य में उचित कारक का प्रयोग कर वाक्य पूर्ण करें- भगवान श्री राम माता सीता के अनुरोध पर माया मृग मारा

(1) पर, ने

(2) को, का

(3) ने, को ✔

(4) से, ने

Q.177 रिक्त स्थान पर उचित शब्द का चुनाव कीजिएप्रेम का मूल्य आँका नहीं जा _____ ।

(1) बनती

(2) आवश्यक

(3) प्रतीक्षा

(4) सकता ✔

Q.178 निम्नलिखित वाक्य के रिक्त स्थान को भरने के लिए सबसे उपयुक्त विशेषण वाले विकल्प का चयन करें।
राष्ट्र के उत्थान में उन व्यक्तियों का योगदान _____ है, जिन्होंने समाज की आजीवन नि:स्वार्थ सेवा की है।

(1) नगण्य
(2) स्वकीय
(3) वायव्य
(4) **स्तुत्य ✔**

Q.179 निम्नलिखित विकल्पों में से उचित विकल्प का चयन कर वाक्य पूर्ण करें – दिन..... ढल रहा है।

(1) **जल्दी-जल्दी ✔**
(2) प्रत्युत
(3) सम्भव
(4) कठिन

Q.180 दिए गए विकल्पों में से हर्ष का पर्यायवाची शब्द नहीं है

(1) प्रसन्नता
(2) प्रफुल्लता
(3) **क्लेशित ✔**
(4) प्रमोद

Q.181 दिए गए वाक्य के किस भाग में त्रुटि है?
एक भिकारींन दरवाज़े पर खड़ी थी।

(1) दरवाज़े
(2) खड़ी थी
(3) पर
(4) **एक भिकारींन ✔**

Q.182 निम्नलिखित विकल्पों में से शुद्ध वर्तनी वाले वाक्य का चयन कीजिए।

(1) हम किसी के काम में हसतक्षेप नहीं करते।
(2) **हम किसी के काम में हस्तक्षेप नहीं करते। ✔**
(3) हम किसी के काम में हस्तकक्षेप नहीं करते।
(4) हम किसी के काम में हअस्तक्षेप नहीं करते।

Q.183 'सूत न कपास' लोकोक्ति का क्या अर्थ है?

(1) शोर ज़्यादा
(2) सच्चा दुखी
(3) अकेले रहना अच्छा
(4) **अकारण विवाद ✔**

Q.184 नीचे दिए गए मुहावरों और उनके अर्थों में से कौन-सा विकल्प असंगत है?

(1) **सुख की नींद सोना – दुःख महसूस करना ✔**
(2) सीढ़ी-सीढ़ी चढ़ना – धीरे-धीरे उन्नति करना
(3) सिर पर पहाड़ रखना–किसी को कोई कठिन काम सौंपना
(4) सिर मारना– समझाते-समझाते हैरान होना

Quick Sarkari

Q.185 'अंधेर मचाना' मुहावरे का सही अर्थ होगा?

(1) बत्ती गुल हो जाना

(2) बादल छा जाना

(3) **अनीति का बोलबाला ✔**

(4) अंधेरा करना

Q.186 दिए गए विकल्पों में से शुद्ध वाक्य का विकल्प चुनें -

(1) **मेरा आपसे विशेष आग्रह है। ✔**

(2) मेरा आपसे विसेष आग्रह है।

(3) मेरा आपसे विषेश आग्रह है।

(4) मेरा आपसे विशेश आग्रह है।

Q.187 निम्नलिखित विकल्प में "सुकाल" का विलोम शब्द क्या है?

(1) उपेक्षा

(2) अकलाई

(3) **अकाल ✔**

(4) अपेक्षा

Q.188 'मलयागिरि की भीलनी चंदन देत जलाय'- लोकोक्ति का अर्थ क्या है?

(1) मूर्ख के आगे ज्ञान की बात करना बेकार है

(2) अपने घर में सब सीधे होते हैं, बाहर अकड़ दिखाते हैं

(3) परिस्थिति के अनुसार व्यक्ति को काम करना चाहिए

(4) **बहुत सी चीज हो तो कद्र नहीं रहती है ✔**

Q.189 'राग' शब्द का विलोम है -

(1) सक्ति

(2) **विराग ✔**

(3) भक्ति

(4) अनुराग

Q.190 'चाँदी का जूता' - मुहावरे का अर्थ क्या है?

(1) बेदाग होना

(2) बेशर्मी दिखाना

(3) पवित्र संपत्ति

(4) **घूस का धन ✔**

Q.191 गद्यांश का शीर्षक बताएं -

(1) अनैतिकता

(2) सदाचार

(3) न्याय व्यवस्था

(4) **भ्रष्टाचार ✔**

Q.192 भ्रष्टाचार का शब्दिक अर्थ क्या है ?

(1) **अनैतिक व अनुचित आचरण ✔**

(2) नैतिक आचरण

(3) मानव सभ्यता

(4) भारतीय संस्कृति

Q.193 निम्नलिखित विकल्पों में से भ्रष्टाचार का उदाहरण कौन-सा नहीं है ?

(1) नकली दवाइयाँ बेचना

(2) भोजन में मिलावट

(3) **शिक्षक द्वारा शिक्षा प्रदान करना ✔**

(4) दहेज़ लेना

Q.194 गद्यांश का सारांश बताएं -

(1) भ्रष्ट व्यक्ति हमेशा अपने पद का सदुपयोग करते हैं।

(2) **अपने स्वार्थ पूर्ति के लिए गलत आचरण करने वाला व्यक्ति भ्रष्टाचारी है। ✔**

(3) परोपकारी व्यक्ति व समाज सेवक भ्रष्टाचारी हैं।

(4) नैतिक व उचित आचरण करने वाला व्यक्ति भ्रष्ट है।

Q.195 गद्यांश का निष्कर्ष किस विकल्प में गलत है ?

(1) समाज या सरकार का कोई ऐसा क्षेत्र नहीं है जहाँ भ्रष्टाचार न हो।

(2) भ्रष्टाचार में धन की उपस्थिति और पद का दुरुपयोग होता है।

(3) आजाद भारत में भ्रष्टाचार दीमक की भाँति भारतीय अर्थव्यवस्था को खोखला बना रहा है।

(4) **आज के समय में आम आदमी से लेकर खास तक सदाचार का व्यवहार कर रहे हैं। ✔**

Q.196 उपर्युक्त गद्यांश के अनुसार मुद्रा का वास्तविक महत्त्व किसमें निहित है?

(1) मुद्रा के संग्रह में

(2) **मुद्रा की विनिमय क्षमता में ✔**

(3) मुद्रा के भौतिक स्वरूप में

(4) कानूनी दस्तावेज में

Q.197 "मुद्रा साधन मात्र है, साध्य नहीं।" उपर्युक्त गद्यांश के आधार पर इसका आशय है -

(1) मुद्रा वस्तु-विनिमय प्रणाली का साधन है।

(2) मुद्रा वस्तुओं के मूल्य को मापने का साधन है।

(3) **मुद्रा लक्ष्य नहीं बल्कि लक्ष्य प्राप्ति का माध्यम है। ✔**

(4) मुद्रा आर्थिक गतिविधियों को गति देने का साधन है।

Q.198 उपर्युक्त गद्यांश का निष्कर्ष है-

(1) **मुद्रा की सार्थकता मानव जीवन को सुविधाजनक और आर्थिक व्यवस्था को सुदृढ़ बनाने में है। ✔**

(2) समाज में मुद्रा को स्वीकार्यता तब प्राप्त होती है जब मुद्रा का मूल्य केवल कागज़ या धातु तक सीमित रह जाता है।

(3) उत्पादन, वितरण और उपभोग की संपूर्ण प्रक्रिया मुद्रा पर आधारित नहीं होती है।

(4) मुद्रा विनिमय की प्रक्रिया को जटिल और निरर्थक बनाती है।

Q.199 निम्नलिखित वाक्य में रेखांकित शब्द कौन-सा कारक है ?

मुद्रा के माध्यम से व्यक्ति अपनी आवश्यकताओं और इच्छाओं की पूर्ति कर सकता है।

(1) **करण कारक ✔**

(2) अधिकरण कारक

(3) अपादान कारक

(4) सम्बन्ध कारक

Q.200 'प्रयोजन' का पर्यायवाची शब्द क्या होगा?

(1) प्रमोद

(2) **उद्देश्य ✔**

(3) प्रवर

(4) प्रारब्ध

Answer Key / उत्तर कुंजी

1 2	2 3	3 3	4 4	5 1	6 4	7 2	8 1	9 1	10 2	11 1	12 3	13 3	14 4	15 4
16 3	17 4	18 3	19 2	20 4	21 3	22 4	23 2	24 3	25 4	26 4	27 3	28 3	29 2	30 4
31 4	32 1	33 4	34 3	35 4	36 2	37 3	38 3	39 4	40 3	41 1	42 1	43 1	44 2	45 1
46 3	47 3	48 3	49 2	50 3	51 4	52 2	53 1	54 1	55 2	56 1	57 3	58 3	59 4	60 1
61 4	62 2	63 1	64 1	65 4	66 1	67 4	68 3	69 3	70 3	71 2	72 2	73 1	74 3	75 2
76 4	77 1	78 1	79 1	80 3	81 3	82 4	83 4	84 1	85 1	86 1	87 1	88 4	89 2	90 3
91 2	92 1	93 4	94 1	95 3	96 3	97 2	98 1	99 2	100 2	101 1	102 1	103 4	104 1	105 2
106 4	107 1	108 1	109 1	110 3	111 2	112 1	113 1	114 4	115 2	116 2	117 2	118 4	119 2	120 3
121 2	122 4	123 4	124 1	125 4	126 4	127 1	128 1	129 2	130 3	131 2	132 3	133 3	134 3	135 3
136 4	137 4	138 1	139 4	140 3	141 4	142 3	143 1	144 2	145 4	146 2	147 4	148 3	149 3	150 2
151 3	152 4	153 4	154 2	155 4	156 3	157 2	158 1	159 3	160 3	161 1	162 1	163 2	164 3	165 2
166 1	167 4	168 4	169 4	170 1	171 1	172 3	173 4	174 1	175 4	176 3	177 4	178 4	179 1	180 3
181 4	182 2	183 4	184 1	185 3	186 1	187 3	188 4	189 2	190 4	191 4	192 1	193 3	194 2	195 4
196 2	197 3	198 1	199 1	200 2										

QuickSarkari.com | WhatsApp Channel | Telegram: t.me/quick_sarkari

Quick Sarkari

Thank you for studying with QuickSarkari!

Get the latest Sarkari Naukri notifications, admit cards, results, answer keys and free previous-year papers first - follow us on WhatsApp and Telegram.

Visit www.quicksarkari.com

Join our WhatsApp Channel

https://whatsapp.com/channel/0029VaxxbrREquiPoXTWM229

Join our Telegram Channel

https://t.me/quick_sarkari

Share this PDF with your friends preparing for DSSSB exams.