DSSSB PREVIOUS YEAR PAPER WITH ANSWER KEY

DSSSB Assistant Superintendent

4 July 2026 · Shift 2

डीएसएसएसबी सहायक अधीक्षक – 4 जुलाई 2026, शिफ्ट 2 का प्रश्न पत्र, उत्तर कुंजी सहित

200	120 min	1 / −0.25	EN + HI
Questions / प्रश्न	Duration / समय	Marks per Q / अंक	Language / भाषा

Sections: General Intelligence and Reasoning Ability, General Awareness, Arithmetical and Numerical Ability, English Language and Comprehension, Hindi Language and Comprehension

INSIDE THIS PDF / इस PDF में

Question Paper in English + Hindi with Answer Key (correct option marked in green) + answer table Page 2–41
प्रश्न पत्र अंग्रेज़ी + हिंदी में, उत्तर कुंजी सहित (सही विकल्प हरे रंग में) + उत्तर तालिका

HOW TO USE THIS PAPER / इस पेपर का उपयोग कैसे करें

1. Attempt the paper first as a timed online mock test (link below).
   पहले नीचे दिए लिंक से इसे टाइमर के साथ ऑनलाइन मॉक टेस्ट के रूप में हल करें।
2. Check your score, section-wise analysis and solutions online.
   ऑनलाइन अपना स्कोर, खंड-वार विश्लेषण और हल देखें।
3. Use this PDF for revision. Correct answers are shown in green.
   दोहराने के लिए इस PDF का उपयोग करें। सही उत्तर हरे रंग में दिए गए हैं।

Attempt this paper as a FREE online mock test

इस पेपर को फ्री ऑनलाइन मॉक टेस्ट के रूप में हल करें – टाइमर, स्कोर और हल के साथ

https://quicksarkari.com/dsssb-assistant-superintendent-04-july-2026-shift-2-mock-test/

All DSSSB Assistant Superintendent papers and mock tests: **quicksarkari.com/dsssb-mock-test/#assistant-superintendent**

Join WhatsApp Channel | Join Telegram Channel

DSSSB Assistant Superintendent – Question Paper (English + Hindi)

DSSSB सहायक अधीक्षक – प्रश्न पत्र (अंग्रेज़ी + हिंदी)

Exam held on 4 July 2026, Shift 2 · 200 questions · correct answers marked ✔ in green
परीक्षा तिथि 4 जुलाई 2026, शिफ्ट 2 · 200 प्रश्न · सही उत्तर हरे रंग में ✔ से चिह्नित

> The official paper for this shift was in English. The Hindi version of each question is a translation prepared by QuickSarkari; the language-section questions are shown as asked.
> इस शिफ्ट का आधिकारिक प्रश्न पत्र अंग्रेज़ी में था। प्रत्येक प्रश्न का हिंदी संस्करण QuickSarkari द्वारा तैयार किया गया अनुवाद है; भाषा खंड के प्रश्न मूल रूप में दिए गए हैं।

General Intelligence and Reasoning Ability

Q.1 QVGK is related to VZJM in a certain way based on the English alphabetical order. In the same way, KLSS is related to PPVU. To which of the given options is ZXBY related, following the same logic?
अंग्रेज़ी वर्णमाला क्रम के आधार पर QVGK एक निश्चित प्रकार से VZJM से संबंधित है। उसी प्रकार, KLSS, PPVU से संबंधित है। समान तर्क का अनुसरण करते हुए, ZXBY दिए गए विकल्पों में से किससे संबंधित है?

(1) EBEA ✔
(2) EEBA
(3) EABE
(4) BAEE

Q.2 Refer to the following letter and symbol series and answer the question that follows. Counting to be done from left to right only.
(Left) Q N © Z Q # @ © Y C £ % T Y £ € # M G # E G (Right)
How many such letters are there that are immediately preceded by a letter and also immediately followed by a symbol?
निम्नलिखित अक्षर और प्रतीक श्रृंखला को देखें और उसके बाद दिए गए प्रश्न का उत्तर दें। गिनती केवल बाएँ से दाएँ की जानी है।
(बाएँ) Q N © Z Q # @ © Y C £ % T Y £ € # M G # E G (दाएँ)
ऐसे कितने अक्षर हैं जिनके ठीक पहले एक अक्षर है और ठीक बाद में एक प्रतीक भी है?

(1) Seven / सात
(2) Four / चार
(3) Five / पाँच ✔
(4) Six / छः

Q.3 Each of A, B, C, D, E, F, and G has a task on a different day of the week starting from Monday and ending on Sunday. A has a task on Monday. B has a task on a day immediately after A. C completes his task three days after B. D completed his task immediately before F but after C. E has a task on the day immediately before G. Which day does D complete his task?
A, B, C, D, E, F और G में से प्रत्येक का सोमवार से शुरू होकर रविवार को समाप्त होने वाले सप्ताह के एक अलग दिन पर एक कार्य है। A का कार्य सोमवार को है। B का कार्य A के ठीक बाद वाले दिन है। C, B के तीन दिन बाद अपना कार्य पूरा करता है। D ने अपना कार्य F के ठीक पहले लेकिन C के बाद पूरा किया। E का कार्य G के ठीक पहले वाले दिन है। D अपना कार्य किस दिन पूरा करता है?

(1) Thursday / गुरुवार
(2) Sunday / रविवार
(3) Saturday / शनिवार ✔
(4) Wednesday / बुधवार

Q.4 A, B, C, D, E, F and G are sitting around a circular table, facing the centre.
B is an immediate neighbour of both G and D. D sits third to the left of C. E sits to the immediate left of C. A is not an immediate neighbour of D.
How many people sit between C and G when counted from the right of G?
A, B, C, D, E, F और G एक वृत्ताकार मेज़ के चारों ओर केंद्र की ओर मुख करके बैठे हैं।
B, G और D दोनों का निकटतम पड़ोसी है। D, C के बाएँ से तीसरे स्थान पर बैठा है। E, C के ठीक बाएँ बैठा है। A, D का निकटतम पड़ोसी नहीं है।
G के दाएँ से गिनने पर C और G के बीच कितने व्यक्ति बैठे हैं?

(1) 4 ✔
(2) 2
(3) 3
(4) 1

Q.5 In a certain code language, A+ B means 'A is the daughter of B'
A @ B means 'A is the father of B'
A # B means 'A is the son of B'
A ÷ B means ' A is the sister of B'
Based on the above, how is M related to U if 'M#I@N÷K+U '?
एक निश्चित कूट भाषा में, A+ B का अर्थ है 'A, B की पुत्री है'
A @ B का अर्थ है 'A, B का पिता है'
A # B का अर्थ है 'A, B का पुत्र है'
A ÷ B का अर्थ है ' A, B की बहन है'
उपर्युक्त के आधार पर, यदि 'M#I@N÷K+U ' है, तो M का U से क्या संबंध है?

(1) Husband / पति
(2) Son / पुत्र ✔
(3) Brother / भाई
(4) Father / पिता

Q.6 This question is based on the following words.
NEW LGR JAU SXB If in each of the words, each letter is changed to the preceding letter in the English alphabetical order, how many words thus formed will have no vowel?
यह प्रश्न निम्नलिखित शब्दों पर आधारित है।
NEW LGR JAU SXB यदि प्रत्येक शब्द में, प्रत्येक अक्षर को अंग्रेज़ी वर्णमाला क्रम में उसके ठीक पहले वाले अक्षर से बदल दिया जाए, तो इस प्रकार बने कितने शब्दों में कोई स्वर नहीं होगा?

(1) Two / दो ✔
(2) One / एक
(3) None / कोई नहीं
(4) Three / तीन

Q.7 R is the brother of S. S is the sister of T. T is the wife of G. G is the father of H. How is R related to H?
R, S का भाई है। S, T की बहन है। T, G की पत्नी है। G, H का पिता है। R का H से क्या संबंध है?

(1) Mother's father's brother / माँ के पिता का भाई
(2) Mother's father / माँ के पिता
(3) Mother's sister / माँ की बहन
(4) Mother's brother / माँ का भाई ✔

Q.8 Which of the following letter-clusters should replace # and % so that the pattern and relationship followed between the letter-cluster pair on the left side of :: is the same as that on the right side of :: ?
: ZVT :: JFD : %

निम्नलिखित में से कौन-से अक्षर-समूह # और % को प्रतिस्थापित करेंगे ताकि :: के बाईं ओर के अक्षर-समूह युग्म के बीच अनुसरित पैटर्न और संबंध वही हो जो :: के दाईं ओर है?
: ZVT :: JFD : %

(1) # = WTR , % = LKH
(2) # = XUR , % = MJL
(3) **# = WSQ , % = MIG ✔**
(4) # = XSR , % = LJG

Q.9 YL 12 is related to VN 26 in a certain way. In the same way, QW 9 is related to NY 23. To which of the following is RC 1 related, following the same logic?

YL 12 एक निश्चित प्रकार से VN 26 से संबंधित है। उसी प्रकार, QW 9, NY 23 से संबंधित है। समान तर्क का अनुसरण करते हुए, RC 1 निम्नलिखित में से किससे संबंधित है?

(1) OF 14
(2) **OE 15 ✔**
(3) PF 13
(4) PF 15

Q.10 Each of X, Y, Z, W, V, U, and T has a task to complete on a different day of the week starting from Monday and ending on Sunday. X completes the task on Tuesday. Only one person completes the task between X and Y. W finishes the task immediately before Y but not on Monday. V completes his task immediately before X. U's task is immediately before T, but after Z. Which day does U complete the task?

X, Y, Z, W, V, U और T में से प्रत्येक को सोमवार से शुरू होकर रविवार को समाप्त होने वाले सप्ताह के एक अलग दिन पर एक कार्य पूरा करना है। X मंगलवार को कार्य पूरा करता है। X और Y के बीच केवल एक व्यक्ति कार्य पूरा करता है। W, Y के ठीक पहले कार्य पूरा करता है लेकिन सोमवार को नहीं। V अपना कार्य X के ठीक पहले पूरा करता है। U का कार्य T के ठीक पहले है, लेकिन Z के बाद है। U किस दिन कार्य पूरा करता है?

(1) Sunday / रविवार
(2) **Saturday / शनिवार ✔**
(3) Monday / सोमवार
(4) Thursday / गुरुवार

Q.11 Refer to the given letter series and answer the question that follows. Counting to be done from left to right only. (Left) W E O T S I J C R D Y J W D P N G R K I L (Right)
How many such vowels are there, each of which is immediately preceded by a consonant and also immediately followed by a vowel?

दी गई अक्षर श्रृंखला को देखें और उसके बाद दिए गए प्रश्न का उत्तर दें। गिनती केवल बाएँ से दाएँ की जानी है।
(बाएँ) W E O T S I J C R D Y J W D P N G R K I L (दाएँ)
ऐसे कितने स्वर हैं, जिनमें से प्रत्येक के ठीक पहले एक व्यंजन है और ठीक बाद में एक स्वर भी है?

(1) None / कोई नहीं
(2) Three / तीन
(3) **One / एक ✔**
(4) Two / दो

Q.12 C is married to D. D is the only daughter of E. E is married to B. E is the brother of F and F is married to A. F is the son of G. How is C related to F?

C का विवाह D से हुआ है। D, E की इकलौती पुत्री है। E का विवाह B से हुआ है। E, F का भाई है और F का विवाह A से हुआ है। F, G का पुत्र है। C का F से क्या संबंध है?

(1) Brother's daughter's husband / भाई की पुत्री का पति ✔

(2) Brother's daughter / भाई की पुत्री

(3) Brother's daughter's son / भाई की पुत्री का पुत्र

(4) Brother's wife's daughter / भाई की पत्नी की पुत्री

Q.13 Refer to the following letter, symbol series and answer the question that follows. Counting to be done from left to right only.

(Left) D F @ T Y S % @ G * R X O M ! P V (Right)

How many such symbols are there, each of which is immediately preceded by a letter and also immediately followed by another symbol?

निम्नलिखित अक्षर, प्रतीक श्रृंखला को देखें और उसके बाद दिए गए प्रश्न का उत्तर दें। गिनती केवल बाएँ से दाएँ की जानी है।

(बाएँ) D F @ T Y S % @ G * R X O M ! P V (दाएँ)

ऐसे कितने प्रतीक हैं, जिनमें से प्रत्येक के ठीक पहले एक अक्षर है और ठीक बाद में एक अन्य प्रतीक भी है?

(1) One / एक ✔

(2) Three / तीन

(3) Two / दो

(4) None / कोई नहीं

Q.14 The position(s) of how many letters will remain unchanged if each of the letters in the word CORONATION is arranged in reverse alphabetical order?

यदि शब्द CORONATION के प्रत्येक अक्षर को उल्टे वर्णमाला क्रम में व्यवस्थित किया जाए, तो कितने अक्षरों का/के स्थान अपरिवर्तित रहेगा/रहेंगे?

(1) Three / तीन

(2) Two / दो ✔

(3) One / एक

(4) Four / चार

Q.15 In a certain code language, 'A ; B' means 'A is the wife of B', 'A @ B' means 'A is the son of B', 'A ÷ B' means 'A is the father of B' and 'A + B' means 'A is the sister of B'.

How is I related to T if 'I ÷ N + S ; E @ T'?

एक निश्चित कूट भाषा में, 'A ; B' का अर्थ है 'A, B की पत्नी है', 'A @ B' का अर्थ है 'A, B का पुत्र है', 'A ÷ B' का अर्थ है 'A, B का पिता है' और 'A + B' का अर्थ है 'A, B की बहन है'।

यदि 'I ÷ N + S ; E @ T' है, तो I का T से क्या संबंध है?

(1) Son's wife's sister / पुत्र की पत्नी की बहन

(2) Son's wife's brother / पुत्र की पत्नी का भाई

(3) Son's wife's mother / पुत्र की पत्नी की माँ

(4) Son's wife's father / पुत्र की पत्नी के पिता ✔

Q.16 The position(s) of how many letters will remain unchanged if each of the letters in the word CONFECTION is arranged in reverse alphabetical order?

यदि शब्द CONFECTION के प्रत्येक अक्षर को उल्टे वर्णमाला क्रम में व्यवस्थित किया जाए, तो कितने अक्षरों का/के स्थान अपरिवर्तित रहेगा/रहेंगे?

(1) One / एक ✔

(2) Four / चार

(3) Two / दो

(4) Three / तीन

Q.17 Refer to the following series and answer the question (all numbers are single digit numbers only). Counting to be done from left to right.

(Left) 6 9 7 4 5 7 3 7 5 7 9 8 5 1 2 4 5 6 2 4 2 1 3 8 4 3 (Right)

How many such odd digits are there each of which is immediately preceded by an odd digit and also immediately followed by an even digit?

निम्नलिखित श्रृंखला को देखें और प्रश्न का उत्तर दें (सभी संख्याएँ केवल एक अंक वाली संख्याएँ हैं)। गिनती बाएँ से दाएँ की जानी है।

(बाएँ) 6 9 7 4 5 7 3 7 5 7 9 8 5 1 2 4 5 6 2 4 2 1 3 8 4 3 (दाएँ)

ऐसे कितने विषम अंक हैं जिनमें से प्रत्येक के ठीक पहले एक विषम अंक है और ठीक बाद में एक सम अंक भी है?

(1) 5

(2) 2

(3) 4 ✔

(4) 3

Q.18 M, N, O, P, U, V and W are sitting around a circular table facing the centre. P is an immediate neighbour of both O and W. W sits third to the left of U. V sits to the immediate left of U. N is not an immediate neighbor of W. Who sits third to the left of M?

M, N, O, P, U, V और W एक वृत्ताकार मेज़ के चारों ओर केंद्र की ओर मुख करके बैठे हैं। P, O और W दोनों का निकटतम पड़ोसी है। W, U के बाएँ से तीसरे स्थान पर बैठा है। V, U के ठीक बाएँ बैठा है। N, W का निकटतम पड़ोसी नहीं है। M के बाएँ से तीसरे स्थान पर कौन बैठा है?

(1) U

(2) P

(3) W

(4) O ✔

Q.19 Seven boxes, G, H, I, J, O, P and Q, are kept one over the other but not necessarily in the same order. Only J is kept above G. Only two boxes are kept between G and H. Only O is kept below P. I is not kept immediately above H. How many boxes are kept between Q and O?

सात बक्से, G, H, I, J, O, P और Q, एक के ऊपर एक रखे गए हैं, लेकिन आवश्यक नहीं कि इसी क्रम में हों। केवल J को G के ऊपर रखा गया है। G और H के बीच केवल दो बक्से रखे गए हैं। केवल O को P के नीचे रखा गया है। I को H के ठीक ऊपर नहीं रखा गया है। Q और O के बीच कितने बक्से रखे गए हैं?

(1) Two / दो ✔

(2) One / एक

(3) Three / तीन

(4) Four / चार

Q.20 Each of M, I, N, S, T, E and R has an exam on a different day of a week starting from Monday and ending on Sunday of the same week. M has exam on Thursday and N has exam on Saturday. S has exam immediately before T. I has exam on one of the days after R. E has exam immediately after T. On which day does I have exam?

M, I, N, S, T, E और R में से प्रत्येक की परीक्षा सोमवार से शुरू होकर उसी सप्ताह के रविवार को समाप्त होने वाले सप्ताह के एक अलग दिन पर है। M की परीक्षा गुरुवार को है और N की परीक्षा शनिवार को है। S की परीक्षा T के ठीक पहले है। I की परीक्षा R के बाद वाले दिनों में से किसी एक दिन है। E की परीक्षा T के ठीक बाद है। I की परीक्षा किस दिन है?

(1) Wednesday / बुधवार

(2) Friday / शुक्रवार

(3) Sunday / रविवार ✔

(4) Monday / सोमवार

Q.21 What should come in place of the question mark (?) in the given series?
99 109 123 141 163 ?

दी गई श्रृंखला में प्रश्न चिह्न (?) के स्थान पर क्या आना चाहिए?
99 109 123 141 163 ?

(1) 189 ✔

(2) 175

(3) 179

(4) 185

Q.22 Based on the English alphabetical order, three of the following four letter cluster pairs are alike in a certain way and thus form a group. Which is the one that does not belong to that group?
(Note: The odd man out is not based on the number of consonants/vowels or their position in the letter cluster.)

अंग्रेज़ी वर्णमाला क्रम के आधार पर, निम्नलिखित चार अक्षर-समूह युग्मों में से तीन किसी निश्चित प्रकार से एकसमान हैं और इस प्रकार एक समूह बनाते हैं। वह कौन-सा युग्म है जो उस समूह से संबंधित नहीं है?
(ध्यान दें: असंगत अक्षर-समूह, अक्षर-समूह में व्यंजनों/स्वरों की संख्या या उनके स्थान पर आधारित नहीं है।)

(1) KZ – HW

(2) ET – BQ

(3) KM – GH ✔

(4) QF – NC

Q.23 What should come in place of the question mark (?) in the given series?
95 104 114 125 137 ?

दी गई श्रृंखला में प्रश्न चिह्न (?) के स्थान पर क्या आना चाहिए?
95 104 114 125 137 ?

(1) 149

(2) 152

(3) 150 ✔

(4) 151

Q.24 Select the set in which the numbers are related in the same way as are the numbers of the following sets.
(NOTE: Operations should be performed on the whole numbers, without breaking down the numbers into their constituent digits. E.g. 13 – Operations on 13 such as adding/ subtracting /multiplying to 13 can be performed. Breaking down 13 into 1 and 3 and then performing mathematical operations on 1 and 3 is not allowed.)
(8, 7, 56)
(11, 9, 99)

उस समुच्चय का चयन करें जिसमें संख्याएँ उसी प्रकार संबंधित हैं जिस प्रकार निम्नलिखित समुच्चयों की संख्याएँ संबंधित हैं।
(ध्यान दें: संख्याओं को उसके घटक अंकों में तोड़े बिना, संक्रियाएँ पूर्ण संख्याओं पर की जानी चाहिए। उदाहरण के लिए 13 – 13 पर संक्रियाएँ जैसे 13 में जोड़ना/घटाना/गुणा करना आदि किया जा सकता है। 13 को 1 और 3 में तोड़ना और फिर 1 और 3 पर गणितीय संक्रियाएँ करने की अनुमति नहीं है।)
(8, 7, 56)
(11, 9, 99)

(1) (12, 5, 60) ✔
(2) (23, 2, 48)
(3) (19, 4, 66)
(4) (21, 5, 126)

Q.25 If 1 is added to each odd digit and 2 is subtracted from each even digit in the number 5321867, what will be the difference between the highest and lowest digits in the number thus formed?

यदि संख्या 5321867 में प्रत्येक विषम अंक में 1 जोड़ दिया जाए और प्रत्येक सम अंक में से 2 घटा दिया जाए, तो इस प्रकार बनी संख्या में सबसे बड़े और सबसे छोटे अंकों के बीच का अंतर क्या होगा?

(1) 8 ✔
(2) 6
(3) 5
(4) 7

Q.26 Which of the following letter-number clusters will replace the question mark (?) in the given series to make it logically complete?
SX12 RW21 QV30 PU39 ?

दी गई श्रृंखला को तार्किक रूप से पूर्ण करने के लिए निम्नलिखित में से कौन-सा अक्षर-संख्या समूह प्रश्न चिह्न (?) को प्रतिस्थापित करेगा?
SX12 RW21 QV30 PU39 ?

(1) OS48
(2) OS49
(3) OT49
(4) OT48 ✔

QuickSarkari.com | WhatsApp Channel | Telegram: t.me/quick_sarkari

Q.27 Select the option figure in which the given figure (X) is embedded as its part (rotation is NOT allowed).

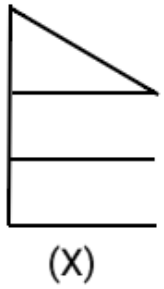

उस विकल्प आकृति का चयन करें जिसमें दी गई आकृति (X) उसके भाग के रूप में निहित है (घुमाने की अनुमति नहीं है)।

(1) 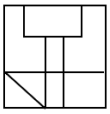

(2) 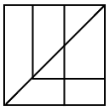

(3) 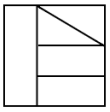 ✔

(4) 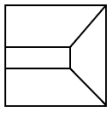

Q.28 Each of the digits in the number 43156927 is arranged in ascending order from left to right. The position(s) of how many digits will remain unchanged as compared to that in the original number?

संख्या 43156927 के प्रत्येक अंक को बाएँ से दाएँ आरोही क्रम में व्यवस्थित किया जाता है। मूल संख्या की तुलना में कितने अंकों का/के स्थान अपरिवर्तित रहेगा/रहेंगे?

(1) None / कोई नहीं ✔

(2) One / एक

(3) Two / दो

(4) Three / तीन

Q.29 Select the letter-cluster from the given options that can replace the question mark (?) in the following series.

TCOZ, UERD, VGUH, ? , XKAP

दिए गए विकल्पों में से उस अक्षर-समूह का चयन करें जो निम्नलिखित श्रृंखला में प्रश्न चिह्न (?) को प्रतिस्थापित कर सकता है।

TCOZ, UERD, VGUH, ? , XKAP

(1) UERD

(2) WIXL ✔

(3) ZJWI

(4) WIVJ

QuickSarkari.com | WhatsApp Channel | Telegram: t.me/quick_sarkari

Q.30 What will come in place of the question mark (?) in the following equation, if '+' and '–' are interchanged and '×' and '÷' are interchanged?
22 ÷ 2 + 8 × 4 – 3 = ?
यदि '+' और '–' को आपस में बदल दिया जाए तथा '×' और '÷' को आपस में बदल दिया जाए, तो निम्नलिखित समीकरण में प्रश्न चिह्न (?) के स्थान पर क्या आएगा?
22 ÷ 2 + 8 × 4 – 3 = ?

(1) 40
(2) 55
(3) 50
(4) **45** ✔

Q.31 What should come in place of '?' in the given series based on the English alphabetical order?
TCG, SGI, RKK, ?, PSO
अंग्रेज़ी वर्णमाला क्रम के आधार पर दी गई श्रृंखला में '?' के स्थान पर क्या आना चाहिए?
TCG, SGI, RKK, ?, PSO

(1) XPL
(2) XQS
(3) **QOM** ✔
(4) HPF

Q.32 Select the figure that will come next in the following figure series.

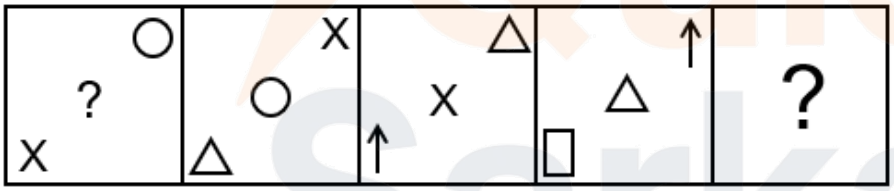

उस आकृति का चयन करें जो निम्नलिखित आकृति श्रृंखला में आगे आएगी।

(1) 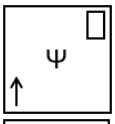
(2) 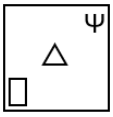
(3) 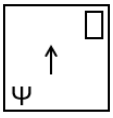 ✔
(4) 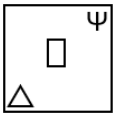

Q.33 What will replace the question mark (?) in the given series to make it logically complete?
H4, G8, E16, B28, X44, ?
दी गई श्रृंखला को तार्किक रूप से पूर्ण करने के लिए प्रश्न चिह्न (?) के स्थान पर क्या आएगा?
H4, G8, E16, B28, X44, ?

(1) T64
(2) S65
(3) S62
(4) **S64** ✔

Q.34 NJ 4 is related to MH -9 following a certain logic. Following the same logic, LH 9 is related to KF -4. To which of the given options is KY 5 related, following the same logic?

एक निश्चित तर्क का अनुसरण करते हुए NJ 4, MH -9 से संबंधित है। समान तर्क का अनुसरण करते हुए, LH 9, KF -4 से संबंधित है। समान तर्क का अनुसरण करते हुए, KY 5 दिए गए विकल्पों में से किससे संबंधित है?

(1) JV -6

(2) JW -8 ✔

(3) KV -6

(4) KV -8

Q.35 In the following number-pairs, the second number is obtained by applying certain mathematical operations to the first number. Select the pair in which the numbers are related in the same way as are the numbers of the following pairs.

(NOTE : Operations should be performed on the whole numbers, without breaking down the numbers into its constituent digits. E.g. 13 – Operations on 13 such as adding / subtracting /multiplying etc. to 13 can be performed. Breaking down 13 into 1 and 3 and then performing mathematical operations on 1 and 3 is not allowed)

7, 36 9, 46

निम्नलिखित संख्या-युग्मों में, पहली संख्या पर कुछ गणितीय संक्रियाएँ करके दूसरी संख्या प्राप्त की जाती है। उस युग्म का चयन करें जिसमें संख्याएँ उसी प्रकार संबंधित हैं जिस प्रकार निम्नलिखित युग्मों की संख्याएँ संबंधित हैं।

(ध्यान दें : संख्याओं को उसके घटक अंकों में तोड़े बिना, संक्रियाएँ पूर्ण संख्याओं पर की जानी चाहिए। उदाहरण के लिए 13 – 13 पर संक्रियाएँ जैसे 13 में जोड़ना / घटाना / गुणा करना आदि किया जा सकता है। 13 को 1 और 3 में तोड़ना और फिर 1 और 3 पर गणितीय संक्रियाएँ करने की अनुमति नहीं है)

7, 36 9, 46

(1) 12, 60

(2) 13, 60

(3) 12, 61 ✔

(4) 13, 61

Q.36 132 is related to 44 following a certain logic. Following the same logic, 93 is related to 31. To which of the following is 126 related, following the same logic?

(NOTE : Operations should be performed on the whole numbers, without breaking down the numbers into its constituent digits. E.g. 13 – Operations on 13 such as adding /subtracting /multiplying etc. to 13 can be performed. Breaking down 13 into 1 and 3 and then performing mathematical operations on 1 and 3 is not allowed)

एक निश्चित तर्क का अनुसरण करते हुए 132, 44 से संबंधित है। समान तर्क का अनुसरण करते हुए, 93, 31 से संबंधित है। समान तर्क का अनुसरण करते हुए, 126 निम्नलिखित में से किससे संबंधित है?

(ध्यान दें : संख्याओं को उसके घटक अंकों में तोड़े बिना, संक्रियाएँ पूर्ण संख्याओं पर की जानी चाहिए। उदाहरण के लिए 13 – 13 पर संक्रियाएँ जैसे 13 में जोड़ना / घटाना / गुणा करना आदि किया जा सकता है। 13 को 1 और 3 में तोड़ना और फिर 1 और 3 पर गणितीय संक्रियाएँ करने की अनुमति नहीं है)

(1) 42 ✔

(2) 46

(3) 35

(4) 37

QuickSarkari.com | WhatsApp Channel | Telegram: t.me/quick_sarkari

Q.37 If 1 is added to each odd digit and 1 is subtracted from each even digit in the number 3758421, what will be the sum of the highest and lowest digits in the number thus formed?

यदि संख्या 3758421 में प्रत्येक विषम अंक में 1 जोड़ दिया जाए और प्रत्येक सम अंक में से 1 घटा दिया जाए, तो इस प्रकार बनी संख्या में सबसे बड़े और सबसे छोटे अंकों का योग क्या होगा?

(1) 9 ✔

(2) 10

(3) 7

(4) 8

Q.38 What will come in the place of the question mark (?) in the following equation, if '+' and '–' are interchanged and '×' and '÷' are interchanged?

49 ÷ 15 + 92 × 2 − 33 = ?

यदि '+' और '–' को आपस में बदल दिया जाए तथा '×' और '÷' को आपस में बदल दिया जाए, तो निम्नलिखित समीकरण में प्रश्न चिह्न (?) के स्थान पर क्या आएगा?

49 ÷ 15 + 92 × 2 − 33 = ?

(1) 728

(2) 722 ✔

(3) 724

(4) 726

Q.39 What should come in place of the question mark (?) in the given series?

5 14 25 38 53 ?

दी गई श्रृंखला में प्रश्न चिह्न (?) के स्थान पर क्या आना चाहिए?

5 14 25 38 53 ?

(1) 71

(2) 68

(3) 73

(4) 70 ✔

Q.40 In the following number-pairs, the second number is obtained by applying certain mathematical operations to the first number. Select the set in which the numbers are related in the same way as are the numbers of the following sets.

(Note: Operations should be performed on the whole numbers, without breaking down the numbers into their constituent digits. E.g. 13 – Operations on 13 such as adding/subtracting/multiplying to 13 can be performed. Breaking down 13 into 1 and 3 and then performing mathematical operations on 1 and 3 is not allowed.)

25, 125 15, 75

निम्नलिखित संख्या-युग्मों में, पहली संख्या पर कुछ गणितीय संक्रियाएँ करके दूसरी संख्या प्राप्त की जाती है। उस समुच्चय का चयन करें जिसमें संख्याएँ उसी प्रकार संबंधित हैं जिस प्रकार निम्नलिखित समुच्चयों की संख्याएँ संबंधित हैं।

(ध्यान दें: संख्याओं को उसके घटक अंकों में तोड़े बिना, संक्रियाएँ पूर्ण संख्याओं पर की जानी चाहिए। उदाहरण के लिए 13 – 13 पर संक्रियाएँ जैसे 13 में जोड़ना/घटाना/गुणा करना आदि किया जा सकता है। 13 को 1 और 3 में तोड़ना और फिर 1 और 3 पर गणितीय संक्रियाएँ करने की अनुमति नहीं है।)

25, 125 15, 75

(1) 23, 118

(2) 12, 65

(3) 20, 100 ✔

(4) 18, 92

General Awareness

Q.41 What is the location of the Deccan Plateau in relation to the Satpura Range?
सतपुड़ा पर्वतश्रेणी के संबंध में दक्कन के पठार की अवस्थिति क्या है?

(1) North of the Satpura Range / सतपुड़ा पर्वतश्रेणी के उत्तर में
(2) West of the Satpura Range / सतपुड़ा पर्वतश्रेणी के पश्चिम में
(3) East of the Satpura Range / सतपुड़ा पर्वतश्रेणी के पूर्व में
(4) **South of the Satpura Range / सतपुड़ा पर्वतश्रेणी के दक्षिण में ✔**

Q.42 The trial of the Howrah-Sibpur Conspiracy case began in which of the following years?
हावड़ा-शिबपुर षड्यंत्र मामले का मुकदमा निम्नलिखित में से किस वर्ष शुरू हुआ था?

(1) 1917
(2) 1919
(3) **1910 ✔**
(4) 1908

Q.43 The Mansabdari system was related to:
मनसबदारी प्रणाली किससे संबंधित थी?

(1) Judicial reforms / न्यायिक सुधार
(2) Revenue collection / राजस्व संग्रह
(3) **Military ranking / सैन्य श्रेणीकरण ✔**
(4) Trade regulation / व्यापार विनियमन

Q.44 The concept of 'Drain of Wealth' was systematically elaborated by:
'धन के निष्कासन (ड्रेन ऑफ वेल्थ)' की अवधारणा का व्यवस्थित रूप से विस्तृत विवेचन किसके द्वारा किया गया था?

(1) M.G. Ranade / एम.जी. रानाडे
(2) **Dadabhai Naoroji / दादाभाई नौरोजी ✔**
(3) R.C. Dutt / आर.सी. दत्त
(4) Gopal Krishna Gokhale / गोपाल कृष्ण गोखले

Q.45 The Preamble of India was amended by which Constitutional Amendment?
भारत की प्रस्तावना में किस संविधान संशोधन द्वारा संशोधन किया गया था?

(1) 73rd Amendment / 73वाँ संशोधन
(2) **42nd Amendment / 42वाँ संशोधन ✔**
(3) 44th Amendment / 44वाँ संशोधन
(4) 86th Amendment / 86वाँ संशोधन

Q.46 Which of the following railway stations has been recognised by UNESCO as a World Heritage Site?
निम्नलिखित में से किस रेलवे स्टेशन को यूनेस्को द्वारा विश्व धरोहर स्थल के रूप में मान्यता दी गई है?

(1) Rani Kamlapati Railway Station / रानी कमलापति रेलवे स्टेशन
(2) Howrah Junction / हावड़ा जंक्शन
(3) Vijayawada Junction / विजयवाड़ा जंक्शन
(4) **Chhatrapati Shivaji Terminus / छत्रपति शिवाजी टर्मिनस ✔**

Q.47 The note in a raga which supports both Vadi and Samvadi notes are called _____.

किसी राग में वादी और संवादी दोनों स्वरों का समर्थन करने वाले स्वर को _____ कहा जाता है।

(1) Uttarang / उत्तरांग

(2) Purvang / पूर्वांग

(3) Vivadi / विवादी

(4) Anuvadi / अनुवादी ✔

Q.48 Which Indian city is known as 'Silicon Valley of India' due to its large number of software companies?

बड़ी संख्या में सॉफ्टवेयर कंपनियों के कारण किस भारतीय शहर को 'भारत की सिलिकॉन वैली' के रूप में जाना जाता है?

(1) Bengaluru / बेंगलुरु ✔

(2) Mumbai / मुंबई

(3) Kolkata / कोलकाता

(4) Chennai / चेन्नई

Q.49 Which of the following correctly defines shallow-focus earthquakes based on their depth of origin?

निम्नलिखित में से कौन-सा कथन उद्गम की गहराई के आधार पर उथले-केंद्र (शैलो-फोकस) भूकंपों को सही ढंग से परिभाषित करता है?

(1) Earthquakes originating at depths greater than seven hundred kilometres below the Earth / पृथ्वी के नीचे सात सौ किलोमीटर से अधिक गहराई पर उत्पन्न होने वाले भूकंप

(2) Earthquakes originating at depths less than seventy kilometres below the Earth's surface / पृथ्वी की सतह के नीचे सत्तर किलोमीटर से कम गहराई पर उत्पन्न होने वाले भूकंप ✔

(3) Earthquakes originating at depths between three hundred and seven hundred kilometres below surface / सतह के नीचे तीन सौ से सात सौ किलोमीटर के बीच की गहराई पर उत्पन्न होने वाले भूकंप

(4) Earthquakes originating at depths between seventy and three hundred kilometres below surface / सतह के नीचे सत्तर से तीन सौ किलोमीटर के बीच की गहराई पर उत्पन्न होने वाले भूकंप

Q.50 The Directive Principles of State Policy in the Indian Constitution aim to establish India as a _____.

भारतीय संविधान में राज्य के नीति निदेशक तत्वों का उद्देश्य भारत को एक _____ के रूप में स्थापित करना है।

(1) Religious State / धार्मिक राज्य

(2) Capitalist State / पूंजीवादी राज्य

(3) Welfare State / कल्याणकारी राज्य ✔

(4) Police State / पुलिस राज्य

Q.51 Which stone was used in the foundation, the (invisible) core of the platform and the steps of the Sun Temple at Konark?

कोणार्क के सूर्य मंदिर की नींव, चबूतरे के (अदृश्य) केंद्रीय भाग और सीढ़ियों में किस पत्थर का उपयोग किया गया था?

(1) Quartzite / क्वार्ट्ज़ाइट

(2) Basalt / बेसाल्ट

(3) Granite / ग्रेनाइट

(4) Laterite / लैटेराइट ✔

Q.52 According to the 73rd Constitutional Amendment Act, which authority is vested with the powers of superintendence, direction, and control of the preparation of electoral rolls for, and the conduct of, all elections to the Panchayats?

73वें संविधान संशोधन अधिनियम के अनुसार, पंचायतों के सभी निर्वाचनों के लिए निर्वाचक नामावली तैयार करने और उनके संचालन के अधीक्षण, निदेशन और नियंत्रण की शक्तियाँ किस प्राधिकरण में निहित हैं?

(1) Gram Sabha / ग्राम सभा
(2) State Legislative Assembly / राज्य विधान सभा
(3) Election Commission of India / भारत निर्वाचन आयोग
(4) **State Election Commission / राज्य निर्वाचन आयोग ✔**

Q.53 What is the primary function of the Inter-State Council in India?

भारत में अंतर-राज्य परिषद का प्राथमिक कार्य क्या है?

(1) **Promoting coordination between states and the centre / राज्यों और केंद्र के बीच समन्वय को बढ़ावा देना ✔**
(2) Resolving inter-state water disputes / अंतर-राज्यीय जल विवादों का समाधान करना
(3) Reviewing the implementation of federal laws / संघीय कानूनों के कार्यान्वयन की समीक्षा करना
(4) Allocating central taxes among states / राज्यों के बीच केंद्रीय करों का आवंटन करना

Q.54 Judicial review in India allows the judiciary to:

भारत में न्यायिक पुनरावलोकन न्यायपालिका को क्या करने की अनुमति देता है?

(1) Suspend the Constitution / संविधान को निलंबित करना
(2) Review the speeches of parliamentarians / सांसदों के भाषणों की समीक्षा करना
(3) **Examine the constitutionality of laws and executive orders / कानूनों और कार्यकारी आदेशों की संवैधानिकता की जाँच करना ✔**
(4) Amend the Constitution / संविधान में संशोधन करना

Q.55 The title 'Sardar' was given to Vallabhbhai Patel after which Satyagraha of 1928?

वल्लभभाई पटेल को 1928 के किस सत्याग्रह के बाद 'सरदार' की उपाधि दी गई थी?

(1) Kheda Satyagraha / खेड़ा सत्याग्रह
(2) **Bardoli Satyagraha / बारडोली सत्याग्रह ✔**
(3) Borsad Satyagraha / बोरसद सत्याग्रह
(4) Salt Satyagraha / नमक सत्याग्रह

Q.56 In which of the following years was the first Rajdhani Express train introduced in the Indian Railways?

भारतीय रेलवे में पहली राजधानी एक्सप्रेस ट्रेन निम्नलिखित में से किस वर्ष शुरू की गई थी?

(1) **1969 ✔**
(2) 1991
(3) 1981
(4) 1973

Q.57 Which of the following island group is man-made (artificial)?

निम्नलिखित में से कौन-सा द्वीप समूह मानव निर्मित (कृत्रिम) है?

(1) **Willingdon Island / वेलिंगडन द्वीप ✔**
(2) Minicoy Island / मिनिकॉय द्वीप
(3) North Andaman / उत्तरी अंडमान
(4) Elephanta Island / एलिफेंटा द्वीप

Q.58 The Ramosi Uprising (1822-29) took place in:

रामोसी विद्रोह (1822-29) कहाँ हुआ था?

(1) Rajasthan / राजस्थान

(2) Bihar / बिहार

(3) **Maharashtra / महाराष्ट्र ✔**

(4) Odisha / ओडिशा

Q.59 The Great Indian Desert, also known as Marusthali, lies to the northwest of the Aravali hills. Which evidence supports the belief that this region was under the sea during the Mesozoic era?

विशाल भारतीय मरुस्थल, जिसे मरुस्थली के नाम से भी जाना जाता है, अरावली पहाड़ियों के उत्तर-पश्चिम में स्थित है। कौन-सा साक्ष्य इस धारणा का समर्थन करता है कि मेसोज़ोइक युग के दौरान यह क्षेत्र समुद्र के नीचे था?

(1) **Traces of wood fossils at Aakal and marine deposits near Brahmsar / आकल में काष्ठ जीवाश्मों के अवशेष और ब्रह्मसर के निकट समुद्री निक्षेप ✔**

(2) Remains of ancient coral formations found across the Rann of Kutch / कच्छ के रण में पाए गए प्राचीन प्रवाल संरचनाओं के अवशेष

(3) Basaltic volcanic rocks identified in the Mount Abu upland region / माउंट आबू उच्चभूमि क्षेत्र में पहचानी गई बेसाल्टिक ज्वालामुखीय चट्टानें

(4) Sediment layers with salt deposits discovered in Sambhar Lake basin / सांभर झील बेसिन में खोजी गई लवण निक्षेपों वाली अवसाद परतें

Q.60 Who among the following was the First Turkish Sultan of Delhi?

निम्नलिखित में से दिल्ली का प्रथम तुर्क सुल्तान कौन था?

(1) Alauddin Khalji / अलाउद्दीन खिलजी

(2) Bahlul Lodi / बहलोल लोदी

(3) **Qutubuddin Aibak / कुतुबुद्दीन ऐबक ✔**

(4) Khizr Khan / खिज्र खाँ

Q.61 Which of the following focuses on upgrading infrastructure in Tier-2 and Tier-3 cities?

निम्नलिखित में से कौन टियर-2 और टियर-3 शहरों में अवसंरचना के उन्नयन पर केंद्रित है?

(1) Sagarmala Programme / सागरमाला कार्यक्रम

(2) Bharatmala Pariyojana / भारतमाला परियोजना

(3) **Urban Infrastructure Development Fund / शहरी अवसंरचना विकास निधि ✔**

(4) PRASAD Scheme and Development Fund / प्रसाद योजना और विकास निधि

Q.62 Who won the 'Actor in a Leading Role' award at the 97th Academy Awards 2025?

97वें अकादमी पुरस्कार 2025 में 'मुख्य भूमिका में अभिनेता' का पुरस्कार किसने जीता?

(1) Ralph Fiennes / राल्फ फाइन्स

(2) Timothée Chalamet / टिमोथी शालमे

(3) **Adrien Brody / एड्रियन ब्रॉडी ✔**

(4) Sebastian Stan / सेबेस्टियन स्टैन

Q.63 As per NITI Aayog's Discussion Paper 'Multidimensional Poverty in India since 2005-06' published in January 2024, how many Indians have escaped multidimensional poverty in the past 9 years?
जनवरी 2024 में प्रकाशित नीति आयोग के चर्चा पत्र '2005-06 से भारत में बहुआयामी गरीबी' के अनुसार, पिछले 9 वर्षों में कितने भारतीय बहुआयामी गरीबी से बाहर निकले हैं?

(1) 36.45 crore / 36.45 करोड़
(2) **24.82 crore / 24.82 करोड़ ✔**
(3) 50.00 crore / 50.00 करोड़
(4) 12.34 crore / 12.34 करोड़

Q.64 Who was awarded the Nobel Peace Prize 2025 by the Norwegian Nobel Committee for her work promoting democratic rights and peaceful transition in her country?
अपने देश में लोकतांत्रिक अधिकारों और शांतिपूर्ण सत्ता परिवर्तन को बढ़ावा देने के उनके कार्य के लिए नॉर्वेजियन नोबेल समिति द्वारा किसे नोबेल शांति पुरस्कार 2025 से सम्मानित किया गया?

(1) Michelle Bachelet / मिशेल बैचलेट
(2) Cristina Fernández de Kirchner / क्रिस्टीना फर्नांडीज़ डी किर्चनर
(3) Dilma Rousseff / डिल्मा रूसेफ
(4) **Maria Corina Machado / मारिया कोरीना मचाडो ✔**

Q.65 After 1991, India's labor market dualism was exacerbated due to:
1991 के बाद, भारत के श्रम बाज़ार का द्वैतवाद किस कारण से और अधिक बढ़ गया?

(1) Import substitution / आयात प्रतिस्थापन
(2) Agrarian reforms / कृषि सुधार
(3) Urbanization / शहरीकरण
(4) **Skill-biased technological change / कौशल-अभिनत प्रौद्योगिकीय परिवर्तन ✔**

Q.66 In April 2025, Mexico and the United States made an agreement involving Mexico to send more water from their share of which basin, primarily for use by farmers of Texas?
अप्रैल 2025 में, मेक्सिको और संयुक्त राज्य अमेरिका ने एक समझौता किया, जिसके तहत मेक्सिको मुख्य रूप से टेक्सास के किसानों के उपयोग के लिए किस बेसिन के अपने हिस्से से अधिक जल भेजेगा?

(1) Rio Sonora / रियो सोनोरा
(2) Rio Conchos / रियो कोंचोस
(3) Rio Sonoyta / रियो सोनोयटा
(4) **Rio Grande / रियो ग्रांडे ✔**

Q.67 How many redeveloped railway stations were virtually inaugurated by Prime Minister Shri Narendra Modi across 18 states on May 22, 2025, under the Amrit Bharat Station Scheme?
22 मई, 2025 को अमृत भारत स्टेशन योजना के तहत प्रधानमंत्री श्री नरेन्द्र मोदी द्वारा 18 राज्यों में कितने पुनर्विकसित रेलवे स्टेशनों का वर्चुअल माध्यम से उद्घाटन किया गया?

(1) 93
(2) 113
(3) 83
(4) **103 ✔**

Q.68 Which of the following is the official mascot of Expo 2025?
निम्नलिखित में से कौन एक्सपो 2025 का आधिकारिक शुभंकर है?

(1) Doraemon / डोरेमोन
(2) Pikachu / पिकाचु
(3) **Myaku-Myaku / म्याकु-म्याकु ✔**
(4) Kumamon / कुमामोन

Q.69 In April 2025, who smashed the second-fastest century in Indian Premier League history at age 14?
अप्रैल 2025 में, किसने 14 वर्ष की आयु में इंडियन प्रीमियर लीग के इतिहास का दूसरा सबसे तेज़ शतक लगाया?

(1) **Vaibhav Suryavanshi / वैभव सूर्यवंशी ✔**
(2) Riyan Parag / रियान पराग
(3) Yashasvi Jaiswal / यशस्वी जायसवाल
(4) Tilak Varma / तिलक वर्मा

Q.70 At the Syed Modi India International Super 300 tournament held in Lucknow, which of the following achievements was notable for Indian badminton?
लखनऊ में आयोजित सैयद मोदी इंडिया इंटरनेशनल सुपर 300 टूर्नामेंट में, भारतीय बैडमिंटन के लिए निम्नलिखित में से कौन-सी उपलब्धि उल्लेखनीय थी?

(1) Lakshya Sen ended his title drought by winning the men's singles / लक्ष्य सेन ने पुरुष एकल जीतकर अपने खिताबी सूखे को समाप्त किया
(2) **PV Sindhu won her first-ever Syed Modi title / पी.वी. सिंधु ने अपना पहला सैयद मोदी खिताब जीता ✔**
(3) PV Sindhu claimed her third title at the event / पी.वी. सिंधु ने इस प्रतियोगिता में अपना तीसरा खिताब जीता
(4) Treesa Jolly and Gayatri Gopichand became the first Indian women's pair to win the title since 2009 / ट्रीसा जॉली और गायत्री गोपीचंद 2009 के बाद यह खिताब जीतने वाली पहली भारतीय महिला जोड़ी बनीं

Q.71 Match each physical quantity with its corresponding SI unit:
Physical Quantity SI Unit
A) Force 1) Joule (J)
B) Power 2) Pascal (Pa)
C) Pressure 3) Watt (W)
D) Energy 4) Newton (N)
प्रत्येक भौतिक राशि का उसके संगत SI मात्रक से मिलान करें:
भौतिक राशि SI मात्रक
A) बल 1) जूल (J)
B) शक्ति 2) पास्कल (Pa)
C) दाब 3) वाट (W)
D) ऊर्जा 4) न्यूटन (N)

(1) A-3, B-2, C-1, D-4
(2) A-2, B-1, C-3, D-4
(3) **A-4, B-3, C-2, D-1 ✔**
(4) A-1, B-4, C-2, D-3

Q.72 Which team topped the medal tally at the 2025 National Games held in Uttarakhand?
उत्तराखंड में आयोजित 2025 राष्ट्रीय खेलों में किस टीम ने पदक तालिका में शीर्ष स्थान प्राप्त किया?

(1) Maharashtra / महाराष्ट्र
(2) Services Sports Control Board / सर्विसेज स्पोर्ट्स कंट्रोल बोर्ड ✔
(3) Madhya Pradesh / मध्य प्रदेश
(4) Haryana / हरियाणा

Q.73 Which of the following organisations has delivered its second Drishti-10 Starliner surveillance drone to the Indian Navy, enhancing India's maritime security capabilities in 2024?
निम्नलिखित में से किस संगठन ने 2024 में भारत की समुद्री सुरक्षा क्षमताओं को बढ़ाते हुए भारतीय नौसेना को अपना दूसरा दृष्टि-10 स्टारलाइनर निगरानी ड्रोन सौंपा?

(1) Bharat Dynamics Limited / भारत डायनेमिक्स लिमिटेड
(2) Hindustan Aeronautics Limited / हिंदुस्तान एयरोनॉटिक्स लिमिटेड
(3) Defence Research and Development Organisation / रक्षा अनुसंधान एवं विकास संगठन
(4) Adani Defence and Aerospace / अदाणी डिफेंस एंड एयरोस्पेस ✔

Q.74 Which of the following is CORRECT about static friction?
स्थैतिक घर्षण के बारे में निम्नलिखित में से कौन-सा कथन सही है?

(1) It remains constant regardless of applied force. / यह लगाए गए बल की परवाह किए बिना स्थिर रहता है।
(2) It helps objects slide easily on rough surfaces. / यह खुरदरी सतहों पर वस्तुओं को आसानी से फिसलने में सहायता करता है।
(3) It increases with the applied force. / यह लगाए गए बल के साथ बढ़ता है। ✔
(4) It always acts in the direction of motion. / यह सदैव गति की दिशा में कार्य करता है।

Q.75 Who among the 2025 Nobel Prize in Physics laureates is associated with demonstrating macroscopic quantum mechanical tunnelling using superconducting electrical circuits?
भौतिकी में 2025 के नोबेल पुरस्कार विजेताओं में से कौन अतिचालक विद्युत परिपथों का उपयोग करके स्थूल क्वांटम यांत्रिक टनलिंग को प्रदर्शित करने से जुड़ा है?

(1) Brian Josephson / ब्रायन जोसेफसन
(2) Arthur Ashkin / आर्थर एश्किन
(3) John Clarke / जॉन क्लार्क ✔
(4) Alain Aspect / एलेन आस्पेक्ट

Q.76 Consider the following statements:
1. Whenever the Lok Sabha is dissolved, the Speaker has to vacate his office.
2. The Speaker acts as the ex-officio Chairman of the Indian Parliamentary Group.
3. The Speaker can be removed only by a resolution passed by the Lok Sabha by an ordinary majority.
Which of the above statements is/are correct?
निम्नलिखित कथनों पर विचार करें:
1. जब भी लोक सभा भंग होती है, अध्यक्ष को अपना पद रिक्त करना पड़ता है।
2. अध्यक्ष भारतीय संसदीय समूह के पदेन अध्यक्ष के रूप में कार्य करता है।
3. अध्यक्ष को केवल लोक सभा द्वारा साधारण बहुमत से पारित संकल्प द्वारा ही हटाया जा सकता है।
उपर्युक्त कथनों में से कौन-सा/कौन-से सही है/हैं?

(1) 1 and 3 only / केवल 1 और 3
(2) 2 only / केवल 2 ✔
(3) 1 only / केवल 1
(4) 2 and 3 only / केवल 2 और 3

Q.77 In January 2025, what action did Donald Trump take regarding WHO?
जनवरी 2025 में, डोनाल्ड ट्रम्प ने WHO के संबंध में क्या कार्रवाई की?

(1) Increased WHO funding / WHO के वित्तपोषण में वृद्धि की
(2) Signed a new health agreement / एक नए स्वास्थ्य समझौते पर हस्ताक्षर किए
(3) Appointed a WHO director / एक WHO निदेशक की नियुक्ति की
(4) **Suspended WHO funding again / WHO के वित्तपोषण को फिर से निलंबित किया ✔**

Q.78 Which pair of elements shows a prominent diagonal relationship?
तत्वों का कौन-सा युग्म एक प्रमुख विकर्ण संबंध प्रदर्शित करता है?

(1) Be and Ca / Be और Ca
(2) **Li and Mg / Li और Mg ✔**
(3) B and Al / B और Al
(4) Na and Ca / Na और Ca

Q.79 Nationalisation of banks refers to the process where the government takes control of private commercial banks and converts them into public sector entities. Which Prime Minister spearheaded the bank nationalisation drive of India in 1969?
बैंकों का राष्ट्रीयकरण उस प्रक्रिया को संदर्भित करता है जिसमें सरकार निजी वाणिज्यिक बैंकों का नियंत्रण अपने हाथ में लेकर उन्हें सार्वजनिक क्षेत्र की संस्थाओं में परिवर्तित कर देती है। 1969 में भारत के बैंक राष्ट्रीयकरण अभियान का नेतृत्व किस प्रधानमंत्री ने किया था?

(1) **Indira Gandhi / इंदिरा गांधी ✔**
(2) Jawaharlal Nehru / जवाहरलाल नेहरू
(3) Morarji Desai / मोरारजी देसाई
(4) Rajiv Gandhi / राजीव गांधी

Q.80 In May 2025, which Indian state government approved the launch of the 'Mukhyamantri Shiksha Gunvatta Abhiyan' to enhance education quality in government schools?
मई 2025 में, किस भारतीय राज्य सरकार ने सरकारी विद्यालयों में शिक्षा की गुणवत्ता बढ़ाने के लिए 'मुख्यमंत्री शिक्षा गुणवत्ता अभियान' शुरू करने को मंज़ूरी दी?

(1) Bihar / बिहार
(2) Madhya Pradesh / मध्य प्रदेश
(3) Uttar Pradesh / उत्तर प्रदेश
(4) **Chhattisgarh / छत्तीसगढ़ ✔**

Arithmetical and Numerical Ability

Q.81 Which of the given options is a perfect cube?
दिए गए विकल्पों में से कौन-सा एक पूर्ण घन है?

(1) 1481631
(2) 1191011
(3) 494033
(4) **941192 ✔**

Q.82 The LCM of $3^3 \times 6^2 \times 10$, $3^2 \times 10^2 \times 17$ and $6^3 \times 10^2 \times 17^2$ is:

$3^3 \times 6^2 \times 10$, $3^2 \times 10^2 \times 17$ और $6^3 \times 10^2 \times 17^2$ का LCM है:

(1) $2^5 \times 3^5 \times 5^2 \times 17^2$ ✔

(2) $2^5 \times 3^5 \times 5^3 \times 17^3$

(3) $2^6 \times 3^6 \times 5^2 \times 17^2$

(4) $2^5 \times 3^6 \times 5^3 \times 17^2$

Q.83 The average of the squares of the first 166 natural numbers is:

प्रथम 166 प्राकृतिक संख्याओं के वर्गों का औसत है:

(1) 9269.5

(2) 9267.5

(3) 9270

(4) 9268.5 ✔

Q.84 Study the following table and answer the given question. Data given in the table is for the month of March 2025.

Company Total number of employees Number of female employees A 5560 2420 B 3210 1850 C 2010 1600 D 2510 1230 E 4240 2610 F 3560 1250 What is the difference between the number of male employees in company A and that in company C?

निम्नलिखित तालिका का अध्ययन करें और दिए गए प्रश्न का उत्तर दें। तालिका में दिए गए आँकड़े मार्च 2025 माह के हैं।

कंपनी कर्मचारियों की कुल संख्या महिला कर्मचारियों की संख्या A 5560 2420 B 3210 1850 C 2010 1600 D 2510 1230 E 4240 2610 F 3560 1250 कंपनी A और कंपनी C में पुरुष कर्मचारियों की संख्या के बीच कितना अंतर है?

(1) 2720

(2) 2730 ✔

(3) 2710

(4) 2700

Q.85 Simplify: $5^2 + \sqrt{(8^2)} - 3\sqrt{9} - 20$

सरल कीजिए: $5^2 + \sqrt{(8^2)} - 3\sqrt{9} - 20$

(1) 4 ✔

(2) 2

(3) 12

(4) 11

Q.86 Find the difference between the sum of the first five prime numbers and the sum of the last three prime numbers in the range between 28 and 80.

28 और 80 के बीच की सीमा में प्रथम पाँच अभाज्य संख्याओं के योग और अंतिम तीन अभाज्य संख्याओं के योग के बीच का अंतर ज्ञात कीजिए।

(1) 46

(2) 40

(3) 42 ✔

(4) 38

Q.87 David invests a sum of ₹6600 and Ajay invests a sum of ₹9800 at the same rate of simple interest per annum. If, at the end of 5 years, Ajay gets ₹480 more interest than David, then find the rate of interest per annum (in percentage).

डेविड ₹6600 की राशि और अजय ₹9800 की राशि साधारण ब्याज की समान वार्षिक दर पर निवेश करते हैं। यदि 5 वर्ष के अंत में, अजय को डेविड से ₹480 अधिक ब्याज मिलता है, तो वार्षिक ब्याज दर (प्रतिशत में) ज्ञात कीजिए।

(1) 3 ✔
(2) 2
(3) 5
(4) 1

Q.88 The average of three numbers is 22. If two numbers are 11 and 24, the third number is:

तीन संख्याओं का औसत 22 है। यदि दो संख्याएँ 11 और 24 हैं, तो तीसरी संख्या है:

(1) 32
(2) 31 ✔
(3) 30
(4) 33

Q.89 The difference between compound interest, compounded annually, and simple interest on a certain sum for 3 years at 10% per annum is ₹12,400. Find out the sum.

एक निश्चित राशि पर 10% वार्षिक दर से 3 वर्ष के लिए वार्षिक रूप से संयोजित चक्रवृद्धि ब्याज और साधारण ब्याज के बीच का अंतर ₹12,400 है। राशि ज्ञात कीजिए।

(1) ₹3,00,000
(2) ₹3,50,000
(3) ₹2,00,000
(4) ₹4,00,000 ✔

Q.90 Ravi spends 52% of his income on household expenses. If his income is ₹29,000, how much money does he save?

रवि अपनी आय का 52% घरेलू खर्चों पर व्यय करता है। यदि उसकी आय ₹29,000 है, तो वह कितने धन की बचत करता है?

(1) ₹13,120
(2) ₹13,660
(3) ₹13,440
(4) ₹13,920 ✔

Q.91 If $a = 2^{24} - 1$ and $b = 2^{52} - 1$, then find the HCF of a and b.

यदि $a = 2^{24} - 1$ और $b = 2^{52} - 1$ है, तो a और b का HCF ज्ञात कीजिए।

(1) 14
(2) 15 ✔
(3) 10
(4) 12

Q.92 The number 146645331 is divisible by which of the following?

संख्या 146645331 निम्नलिखित में से किससे विभाज्य है?

(1) 9

(2) **3 ✔**

(3) 13

(4) 11

Q.93 If the sum of the first N natural numbers is K, then the sum of the cubes of the first N natural numbers is:

यदि प्रथम N प्राकृतिक संख्याओं का योग K है, तो प्रथम N प्राकृतिक संख्याओं के घनों का योग है:

(1) **K^2 ✔**

(2) 6K + 1

(3) 3K

(4) K^3

Q.94 Study the pie charts and answer the question that follows.

The entire fund that a school gets from different sources is equal to ₹620 lakh. If the school managed school maintenance from the government agencies' fund only, how much fund from the government agencies would still be left for other uses?

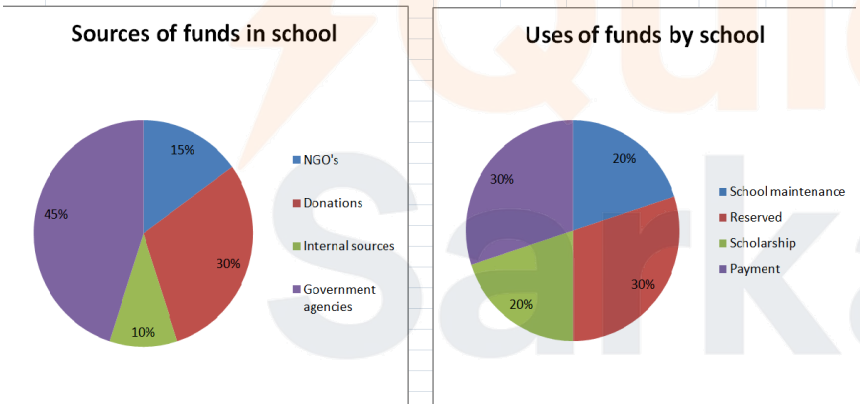

पाई चार्ट का अध्ययन करें और उसके बाद दिए गए प्रश्न का उत्तर दें।

एक विद्यालय को विभिन्न स्रोतों से प्राप्त होने वाली संपूर्ण निधि ₹620 लाख के बराबर है। यदि विद्यालय ने विद्यालय रखरखाव का प्रबंध केवल सरकारी एजेंसियों की निधि से किया, तो सरकारी एजेंसियों की कितनी निधि अन्य उपयोगों के लिए अभी भी शेष रहेगी?

(1) ₹195.6 lakh / ₹195.6 लाख

(2) ₹223.2 lakh / ₹223.2 लाख

(3) ₹216.5 lakh / ₹216.5 लाख

(4) **₹155.0 lakh / ₹155.0 लाख ✔**

Q.95 P is x% of Q. If P is increased by 30% and Q is decreased by 20%, the new P becomes 40% of new Q. Find the value of x (rounded off to two decimal places).

P, Q का x% है। यदि P में 30% की वृद्धि की जाए और Q में 20% की कमी की जाए, तो नया P, नए Q का 40% हो जाता है। x का मान (दो दशमलव स्थानों तक पूर्णांकित) ज्ञात कीजिए।

(1) 23.27

(2) 23.25

(3) **24.62 ✔**

(4) 25.25

Q.96 A trader buys some goods for ₹150. If the overhead expenses be 18% of the cost price, then at what price should it be sold to earn 10%?

एक व्यापारी ₹150 में कुछ माल खरीदता है। यदि ऊपरी खर्च क्रय मूल्य का 18% हो, तो 10% लाभ अर्जित करने के लिए उसे किस मूल्य पर बेचा जाना चाहिए?

(1) ₹194.70 ✔

(2) ₹193.70

(3) ₹191.70

(4) ₹192.70

Q.97 A family has 7 members whose current average age is 26 years. The youngest member is 8 years old. At the time of the youngest member's birth, what was the average age of the other 6 family members?

एक परिवार में 7 सदस्य हैं जिनकी वर्तमान औसत आयु 26 वर्ष है। सबसे छोटा सदस्य 8 वर्ष का है। सबसे छोटे सदस्य के जन्म के समय, परिवार के अन्य 6 सदस्यों की औसत आयु कितनी थी?

(1) 23 years / 23 वर्ष

(2) 19 years / 19 वर्ष

(3) 21 years / 21 वर्ष ✔

(4) 22 years / 22 वर्ष

Q.98 The value of $8^2 + \sqrt{(10^2)} - 10\sqrt{36} - 6 =$

$8^2 + \sqrt{(10^2)} - 10\sqrt{36} - 6$ का मान है:

(1) 6

(2) 17

(3) 8 ✔

(4) -2

Q.99 Rakesh purchased 10 kg of rice at the rate of ₹38 per kg and 30 kg of rice at ₹46 per kg. He sold the whole mixture at the rate of ₹43 per kg. Find his loss (in ₹).

राकेश ने ₹38 प्रति kg की दर से 10 kg चावल और ₹46 प्रति kg की दर से 30 kg चावल खरीदा। उसने पूरा मिश्रण ₹43 प्रति kg की दर से बेच दिया। उसकी हानि (₹ में) ज्ञात कीजिए।

(1) 35

(2) 45

(3) 48

(4) 40 ✔

Q.100 The population of a village Palampur decreased every year due to migration, poverty and unemployment. The present population of the town is 5,86,500. Last year the migration was 2.25%, and the year before last, it was 6.25%. What was the population two years ago?

पलायन, गरीबी और बेरोज़गारी के कारण पालमपुर गाँव की जनसंख्या प्रति वर्ष घटती गई। नगर की वर्तमान जनसंख्या 5,86,500 है। पिछले वर्ष पलायन 2.25% था, और उससे पिछले वर्ष यह 6.25% था। दो वर्ष पहले जनसंख्या कितनी थी?

(1) 6,00,000

(2) 6,40,000 ✔

(3) 5,40,000

(4) 6,20,000

Q.101 If the sum of the upstream and downstream speeds of a boat is 30 km/hr, what is the speed of the boat in still water?

यदि किसी नाव की धारा के प्रतिकूल और धारा के अनुकूल चालों का योग 30 km/hr है, तो शांत जल में नाव की चाल कितनी है?

(1) 12 km/hr

(2) 18 km/hr

(3) 15 km/hr ✔

(4) 10 km/hr

Q.102 A new irrigation channel uses a trapezoidal cross-section. Its parallel sides (water surface and bed) are 12 m and 8 m respectively, and the cross-sectional area of flow is 360 m^2. Assuming vertical depth is uniform, what is the depth (in m) of the channel?

एक नई सिंचाई नहर में समलंबाकार अनुप्रस्थ काट का उपयोग किया गया है। इसकी समांतर भुजाएँ (जल सतह और तल) क्रमशः 12 m और 8 m हैं, और प्रवाह का अनुप्रस्थ काट क्षेत्रफल 360 m^2 है। यह मानते हुए कि ऊर्ध्वाधर गहराई एकसमान है, नहर की गहराई (m में) कितनी है?

(1) 24

(2) 40

(3) 36 ✔

(4) 30

Q.103 A conical tent's base has a diameter of 160 meters and a height of 60 meters. What length of canvas 88 m wide will be required for making this tent?

(Use π = 22/7)

एक शंक्वाकार तंबू के आधार का व्यास 160 मीटर और ऊँचाई 60 मीटर है। इस तंबू को बनाने के लिए 88 m चौड़े कितने लंबे कैनवास की आवश्यकता होगी?

(π = 22/7 का प्रयोग करें)

(1) 285 5/7 m ✔

(2) 285 4/7 m

(3) 285 2/7 m

(4) 285 3/7 m

Q.104 Two taps can fill a cistern in 2 hours and 50 hours, respectively. A third tap can empty it in 50 hours. How long (in hours) will it take to fill the empty cistern, if all of them are opened together?

दो नल एक टंकी को क्रमशः 2 घंटे और 50 घंटे में भर सकते हैं। एक तीसरा नल इसे 50 घंटे में खाली कर सकता है। यदि सभी नलों को एक साथ खोल दिया जाए, तो खाली टंकी को भरने में कितना समय (घंटों में) लगेगा?

(1) 5

(2) 2 ✔

(3) 3

(4) 4

Q.105 If the volume of a cube is 64000 m^3, then find the lateral surface area of the cube (in m^2).

यदि एक घन का आयतन 64000 m^3 है, तो घन का पार्श्व पृष्ठीय क्षेत्रफल (m^2 में) ज्ञात कीजिए।

(1) 6800

(2) 6400 ✔

(3) 5600

(4) 6000

Q.106 If the curved surface area of a cylinder is 776.2 cm^2 and its height is 37 cm, then find its volume. (Use π = 3.14 and round off your answer to two decimal places.)

यदि एक बेलन का वक्र पृष्ठीय क्षेत्रफल 776.2 cm^2 है और इसकी ऊँचाई 37 cm है, तो इसका आयतन ज्ञात कीजिए। (π = 3.14 का प्रयोग करें और अपने उत्तर को दो दशमलव स्थानों तक पूर्णांकित करें।)

(1) 1337.24 cm^3

(2) **1296.45 cm^3** ✔

(3) 1273.99 cm^3

(4) 1305.94 cm^3

Q.107 A man sells an article at 5% discount on the marked price. Had he sold it at 25% discount, he would have received ₹70 less. Find the marked price of the article (in ₹).

एक व्यक्ति एक वस्तु को अंकित मूल्य पर 5% छूट पर बेचता है। यदि उसने इसे 25% छूट पर बेचा होता, तो उसे ₹70 कम प्राप्त होते। वस्तु का अंकित मूल्य (₹ में) ज्ञात कीजिए।

(1) **350** ✔

(2) 280

(3) 300

(4) 400

Q.108 In a circular track of 1260 meters, two runners A and B start running simultaneously from the same point in the same direction. A runs at a speed of 12 m/second and B runs at a speed of 15 m/second. How long will B take to cross A?

1260 मीटर के एक वृत्ताकार ट्रैक पर, दो धावक A और B एक ही बिंदु से एक ही दिशा में एक साथ दौड़ना शुरू करते हैं। A, 12 m/second की चाल से दौड़ता है और B, 15 m/second की चाल से दौड़ता है। B को A को पार करने में कितना समय लगेगा?

(1) 6 minutes / 6 मिनट

(2) 8 minutes / 8 मिनट

(3) **7 minutes / 7 मिनट** ✔

(4) 5 minutes / 5 मिनट

Q.109 If the length, breadth and height of a cuboid are 10 cm, 8 cm and 6 cm, respectively, then the length of the longest diagonal is equal to:

यदि एक घनाभ की लंबाई, चौड़ाई और ऊँचाई क्रमशः 10 cm, 8 cm और 6 cm हैं, तो सबसे लंबे विकर्ण की लंबाई किसके बराबर है?

(1) 12√3 cm

(2) **10√2 cm** ✔

(3) 10√3 cm

(4) 12√2 cm

Q.110 If the third proportional of 16 and 56 is x, then what is the value of x?

यदि 16 और 56 का तृतीयानुपाती x है, तो x का मान क्या है?

(1) **196** ✔

(2) 182

(3) 168

(4) 224

Q.111 A company manufactures cylindrical metal cans. For a new packaging design, they decided to make the cans six times taller while reducing the area of the circular base to one-ninth of its original base. By what factor will the curved surface area of the new can increase as compared to the original?

एक कंपनी बेलनाकार धातु के डिब्बे बनाती है। एक नई पैकेजिंग डिज़ाइन के लिए, उन्होंने डिब्बों को छह गुना ऊँचा बनाने और वृत्ताकार आधार के क्षेत्रफल को उसके मूल आधार का नौवाँ भाग करने का निर्णय लिया। मूल डिब्बे की तुलना में नए डिब्बे का वक्र पृष्ठीय क्षेत्रफल कितने गुना बढ़ जाएगा?

(1) 5
(2) **2 ✔**
(3) 4
(4) 3

Q.112 If A:B = 5:7 and B:C = 8:9, find the value of (A + C):(A + B).

यदि A:B = 5:7 और B:C = 8:9 है, तो (A + C):(A + B) का मान ज्ञात कीजिए।

(1) 58:61
(2) 17:21
(3) 5:7
(4) **103:96 ✔**

Q.113 If x is the third proportional of 18 and 24 and y is the fourth proportion of 6,12, and 15, then what is the value of 2x + y/2 ?

यदि x, 18 और 24 का तृतीयानुपाती है और y, 6,12 और 15 का चतुर्थानुपाती है, तो 2x + y/2 का मान क्या है?

(1) 78
(2) 76
(3) 74
(4) **79 ✔**

Q.114 Four workers A, B, C, and D are assigned a project. A works twice as fast as B, B works three times as fast as C, and C works 1.5 times as fast as D. If together they can complete the work in 6 days, how many days will it take for A and D working together to finish the same work?

चार श्रमिकों A, B, C और D को एक परियोजना सौंपी जाती है। A, B से दोगुनी तेज़ी से कार्य करता है, B, C से तीन गुनी तेज़ी से कार्य करता है, और C, D से 1.5 गुनी तेज़ी से कार्य करता है। यदि वे एक साथ मिलकर कार्य को 6 दिनों में पूरा कर सकते हैं, तो A और D को एक साथ कार्य करते हुए उसी कार्य को पूरा करने में कितने दिन लगेंगे?

(1) 9.8 days / 9.8 दिन
(2) **9.6 days / 9.6 दिन ✔**
(3) 9.2 days / 9.2 दिन
(4) 9.4 days / 9.4 दिन

Q.115 A total amount of ₹2111 is divided among Sarita, Arun, and Mahesh such that after deducting ₹3 from Sarita's share, ₹45 from Arun's share, and ₹6 from Mahesh's share, the remaining amounts are in the ratio 4 : 6 : 7. Find Arun's original share.

₹2111 की कुल राशि को सरिता, अरुण और महेश के बीच इस प्रकार विभाजित किया जाता है कि सरिता के हिस्से से ₹3, अरुण के हिस्से से ₹45 और महेश के हिस्से से ₹6 घटाने के बाद, शेष राशियाँ 4 : 6 : 7 के अनुपात में हैं। अरुण का मूल हिस्सा ज्ञात कीजिए।

(1) ₹626
(2) **₹771 ✔**
(3) ₹826
(4) ₹776

Q.116 If the radii of two cylindrical cones are in the ratio of 2 : 7 and the ratio of their volumes is 8 : 5, then find the ratio of their heights.

यदि दो बेलनाकार शंकुओं की त्रिज्याएँ 2 : 7 के अनुपात में हैं और उनके आयतनों का अनुपात 8 : 5 है, तो उनकी ऊँचाइयों का अनुपात ज्ञात कीजिए।

(1) 98 : 7

(2) **98 : 5** ✔

(3) 94 : 7

(4) 94 : 5

Q.117 A shopkeeper fixes the marked price of an item 100% above its cost price. What percentage of discount on marked price should be allowed to gain 40%?

एक दुकानदार किसी वस्तु का अंकित मूल्य उसके क्रय मूल्य से 100% अधिक निर्धारित करता है। 40% लाभ प्राप्त करने के लिए अंकित मूल्य पर कितने प्रतिशत की छूट दी जानी चाहिए?

(1) **30%** ✔

(2) 33%

(3) 27%

(4) 28%

Q.118 On purchasing 63 pens, Anirudh gets 7 pens free. Find the total discount.

63 पेन खरीदने पर, अनिरुद्ध को 7 पेन मुफ़्त मिलते हैं। कुल छूट ज्ञात कीजिए।

(1) **10%** ✔

(2) 25%

(3) 15%

(4) 20%

Q.119 A hemispherical bowl made of brass has inner diameter 16 cm. Find the cost (in ₹) of tin-plated on the inside at the rate of ₹0.21 cm^2. (Use π = 22/7)

पीतल से बने एक अर्धगोलाकार कटोरे का आंतरिक व्यास 16 cm है। ₹0.21 cm^2 की दर से इसके अंदर की ओर कलई (टिन-प्लेटिंग) की लागत (₹ में) ज्ञात कीजिए। (π = 22/7 का प्रयोग करें)

(1) **₹84.48** ✔

(2) ₹83.45

(3) ₹85.15

(4) ₹84.22

Q.120 A and B together can complete a piece of work in 18 days. If A alone can complete the same work in 24 days, then in how many days can B alone complete half of the work?

A और B मिलकर एक कार्य को 18 दिनों में पूरा कर सकते हैं। यदि A अकेले उसी कार्य को 24 दिनों में पूरा कर सकता है, तो B अकेले आधे कार्य को कितने दिनों में पूरा कर सकता है?

(1) 72

(2) **36** ✔

(3) 144

(4) 108

English Language and Comprehension

Q.121 Rearrange the segments to form a coherent statement.
against the stillness of dawn (O) / leaving echoes in its wake (P) / shattering the fragile calm (Q) / like a blade through silk (R) / a single train screamed past (S)

(1) RPQSO
(2) OPQRS
(3) OSQRP ✔
(4) PRQSO

Q.122 In the sentence below, choose the most appropriate option to fill in the blanks.
She gave me ___ honest opinion after ___ unusual incident at work.

(1) an, an ✔
(2) a, an
(3) a, a
(4) an, a

Q.123 Choose the correct form of the past tense to fill in the blank.
When Raju came to school, Mr. Anand _____ there for five years.

(1) had taught
(2) taught
(3) was teaching
(4) had been teaching ✔

Q.124 Select the correct option to complete the following sentence.
The family fell apart ____ the demise of the old matriarch and now bore a sad sight ___ the glorious days when everyone stayed united.

(1) subsequent to, of ✔
(2) along with, about
(3) due to, by virtue of
(4) after, on

Q.125 Choose the option that best completes the sentence.
The cat jumped _____ the table without making any noise.

(1) into
(2) onto ✔
(3) between
(4) over

Q.126 Select the option that identifies the correct sentence in direct speech.

(1) He said he goes to the market.
(2) He said, I am going to the market.
(3) He said, "I am going to the market." ✔
(4) He said that he is going to the market.

QuickSarkari.com | WhatsApp Channel | Telegram: t.me/quick_sarkari

Q.127 Choose the correct one-word substitution for the underlined segment.
The response was deliberately intended to provoke anger.

(1) inflammatory ✔
(2) impartial
(3) tentative
(4) conciliatory

Q.128 Select the most appropriate option that completes the given sentence in future perfect tense form.
By the end of this year, the company _____ its new software to all clients.

(1) will roll out
(2) has rolled out
(3) rolls out
(4) will have rolled out ✔

Q.129 Choose the appropriate article from the options to complete the sentence.
His success came from _____ lucky series of situations.

(1) No article required
(2) a ✔
(3) the
(4) an

Q.130 Rearrange the segments to form a coherent statement.
Lay stories deliberately ignored (O) / Beyond the polished statistics (P) / And narratives free of discomfort (Q) / By reports seeking neat conclusions (R) / For mass consumption (S)

(1) ORQSP
(2) PQORS ✔
(3) QSORP
(4) RPOQS

Q.131 Choose the correct word to substitute the group of words given below.
A person who believes in fate and destiny

(1) Pessimist
(2) Realist
(3) Fatalist ✔
(4) Optimist

Q.132 In the given question, a statement divided into different segments is given. The first segment is fixed. Rearrange the other segments to form a coherent statement.
The philosopher's argument unfolds methodically, P) before advancing toward radical conclusions Q) beginning with axiomatic principles R) that are rarely questioned S) unsettling traditional ethical frameworks

(1) PQRS
(2) QRPS ✔
(3) SQRP
(4) RPSQ

Q.133 Choose the correct option to complete the sentence appropriately.
Despite the challenging conditions, the mountaineers _____ reached the summit before nightfall.

(1) reluctantly
(2) **resolutely ✔**
(3) tentatively
(4) inadvertently

Q.134 Parts of a sentence are given below in jumbled order. Arrange the parts in the correct order to form a meaningful sentence.
(A) who had been searching / (B) finally found it / (C) after hours of wandering / (D) the little boy / (E) for his lost dog / (F) through the dense forest

(1) **D-A-E-B-C-F ✔**
(2) E-F-C-A-D-B
(3) C-A-F-D-B-E
(4) A-B-F-D-C-E

Q.135 Choose the correct sentence in indirect speech from the options given below.
Direct speech: The teacher said, "Honesty is the best policy."

(1) The teacher said that honesty was the best policy.
(2) **The teacher said that honesty is the best policy. ✔**
(3) The teacher told that honesty is the best policy.
(4) The teacher said honesty had been the best policy.

Q.136 In the following sentence, replace the highlighted phrase with the most appropriate one-word substitution.
The researcher was criticized for introducing unnecessary complexity into a simple argument.

(1) pedantry
(2) redundancy
(3) **obfuscation ✔**
(4) digression

Q.137 From the options provided, select the word that best replaces the underlined group of words in the given sentence. A natural ability to do something well often becomes apparent early in life for exceptionally talented individuals.

(1) Proficiency
(2) Dexterity
(3) Expertise
(4) **Aptitude ✔**

Q.138 Choose the most appropriate direct speech form for the given sentence:
She confessed that she might have overestimated his patience.

(1) She said, "I overestimated his patience."
(2) She said, "I could have overestimated his patience."
(3) **She said, "I may have overestimated his patience." ✔**
(4) She said, "I might have overestimated his patience."

Q.139 Select the most appropriate option to fill in the blank.
The new policy has been met with _____ reactions from the employees, ranging from enthusiasm to skepticism.

(1) congruent
(2) **ambivalent ✔**
(3) vigilant
(4) tedious

Q.140 Identify the correct active form of the given sentence.
The revised manuscript will be submitted by the author before the deadline.

(1) **The author will submit the revised manuscript before the deadline. ✔**
(2) The author is going to submit the revised manuscript before the deadline.
(3) The author submits the revised manuscript before the deadline.
(4) The revised manuscript will submit the author before the deadline.

Q.141 Identify the ANTONYM of the highlighted word.
The critic dismissed the argument as specious, though it appeared convincing at first glance.

(1) Tentative
(2) Rhetorical
(3) **Sound ✔**
(4) Popular

Q.142 Select the most appropriate proverb that can substitute the underlined segment in the given sentence.
After missing several deadlines, he finally realised that he would suffer the consequences of his own mistakes.

(1) fortune favours the brave
(2) the pen is mightier than the sword
(3) one should make hay while the sun shines
(4) **you reap what you sow ✔**

Q.143 Select the most appropriate proverb that can substitute the underlined segment in the given sentence.
She wanted to spend all her money on a new car but also save for a vacation, but she couldn't have it both ways.

(1) where there's a will, there's a way
(2) the grass is always greener on the other side
(3) the early bird catches the worm
(4) **you can't have your cake and eat it too ✔**

Q.144 Select the INCORRECTLY spelt word.

(1) **Desicated ✔**
(2) Tarnish
(3) Opulent
(4) Nostalgic

Q.145 Select the option that rectifies the underlined incorrectly spelt word in the given sentence.
The emmegration of scholars is a catastrophe for the country.

(1) emigration ✔
(2) emmiggration
(3) emegration
(4) emigrration

Q.146 Choose the most appropriate synonym of the highlighted word.
The nefarious activities of the syndicate were finally exposed by the investigative journalists.

(1) Villainous ✔
(2) Exemplary
(3) Kinetic
(4) Glistening

Q.147 Choose the option that is the closest synonym of the highlighted word as used in the sentence.
Her critique was incisive, identifying weaknesses others had overlooked.

(1) Courteous
(2) Languid
(3) Decorative
(4) Sharp ✔

Q.148 Choose the correct option that can replace the highlighted text without changing the meaning of the sentence. She got into a prestigious university though she had to overcome many excessive challenges.

(1) jump through hoops ✔
(2) climb the ladder
(3) toe the line
(4) run out of the stream

Q.149 Replace the underlined segment with the correct proverb.
He's already planning a vacation with his bonus, but I told him not to celebrate before receiving the job offer.

(1) that the early bird catches the worm
(2) not to count his chickens before they hatch ✔
(3) not to put all his eggs in one basket
(4) that every cloud has a sliver lining

Q.150 Choose the most appropriate antonym of the highlighted word.
Scholars continue to debate whether the author's final manuscript was intended to be laconic or if sections were simply lost to time.

(1) Terse
(2) Informative
(3) Succinct
(4) Voluble ✔

QuickSarkari.com | WhatsApp Channel | Telegram: t.me/quick_sarkari

Q.151 Which consequence of impulsive decision-making is most strongly emphasized in the passage?

(1) It helps people respond quickly to emotionally difficult situations

(2) **It often undermines judgment by leading to preventable mistakes ✔**

(3) It encourages flexibility during difficult circumstances

(4) It strengthens confidence during competitive encounters

Q.152 Which inference can most reasonably be drawn from the passage?

(1) Competitive environments inevitably encourage unethical behaviour

(2) Emotional restraint prevents individuals from enjoying recreation

(3) **Intellectual ability alone is insufficient for meaningful competition ✔**

(4) Strategic games are more valuable than all physical activities

---

Q.153 Identify the central theme of the passage.

(1) **Ethical discipline emerges through reflective forms of recreation ✔**

(2) Competitive activities weaken cooperation within society

(3) Intellectual games are superior to all practical experiences

(4) Emotional restraint limits the freedom of individual expression

---

Q.154 Which of the following titles most appropriately captures the central concern of the passage?

(1) Chess as a Reflection of Strategic Human Conflict

(2) **Games as Instruments of Intellectual and Moral Growth ✔**

(3) Competition and the Psychological Nature of Victory

(4) The Decline of Traditional Recreational Practices

Q.155 The tone of the passage can best be described as:

(1) nostalgic and sentimental about traditional games

(2) **reflective and instructive in its presentation of ideas ✔**

(3) critical and confrontational toward competitive behaviour

(4) cynical and dismissive toward recreational pursuits

Q.156 Which human activity is identified in the passage as a cause of climate change?

(1) Expansion of international tourism networks

(2) **Excessive dependence on fossil fuels ✔**

(3) Improvement of agricultural irrigation methods

(4) Increased investment in renewable energy

Q.157 What can be inferred from the passage about developing nations?

(1) **They face conflicts between growth and conservation ✔**

(2) They produce fewer emissions than developed countries

(3) They completely reject environmental protection policies

(4) They depend entirely on renewable energy sources

Q.158 Which of the following best expresses the central theme of the passage?

(1) The scientific benefits of renewable energy systems

(2) The environmental effects of technological innovation

(3) **The global challenge of climate change management ✔**

(4) The historical evolution of industrial economies

Q.159 What is the tone of the passage?

(1) Optimistic and celebratory

(2) Emotional and nostalgic

(3) **Analytical and concerned ✔**

(4) Humorous and satirical

Q.160 Which of the following is the most appropriate title for the passage?

(1) **Climate Change and the Need for Global Action ✔**

(2) Renewable Energy and Technological Competition

(3) Environmental Policies in Ancient Civilizations

(4) Industrial Expansion in the Modern Economic World

Hindi Language and Comprehension

Q.161 उपयुक्त क्रिया विशेषण का चयन कर दिये गये वाक्य को पूर्ण कीजिए- 'बेरोजगार व्यक्ति .....कर मरता है।'

(1) **तिल-तिल ✔**

(2) जिससे

(3) चुपके से

(4) सोकर

Q.162 'पत्थर _____ है।' वाक्य में रिक्त स्थान की पूर्ति के लिए सही विशेषण पद वाला विकल्प चुनें

(1) **कठोर ✔**

(2) मोटा

(3) गहरा

(4) दुबला

Q.163 निम्नलिखित विकल्पों में से सही वाक्य क्रम पहचानें -

(1) विज्ञान मानव सभ्यता के दो मूल आधार हैं धर्म और।

(2) दो मूल आधार हैं धर्म और विज्ञान मानव सभ्यता के।

(3) मानव सभ्यता के दो मूल आधार हैं धर्म और विज्ञान।

(4) **धर्म और विज्ञान मानव सभ्यता के दो मूल आधार हैं। ✔**

Q.164 दिये गये प्रश्न में एक वाक्य चार भागों में विभाजित है और ये चारों भाग क्रमानुसार नहीं हैं, इन्हें इस तरह क्रम में लगायें कि एक सुसंगत वाक्य बन सके- (क) तभी अचानक एक सुन्दर स्त्री मेरे कमरे में आयी। (ख) एक किस्सा पढ़ रही थी (ग) मैं अपने कमरे में पलंग पर पड़ी (घ) एक रोज शाम के वक्त

(1) **घ, ग, ख, क ✔**

(2) क, ग,घ, ख

(3) क, ख, ग, घ

(4) ग, घ, ख, क

Q.165 रिक्त स्थान के लिए उपयुक्त कारक चिन्ह का चयन दिए गए विकल्पों में से करें- वरुण कभी भी अपने भाई.....साथ बाजार नहीं जाता है।

(1) **के ✔**

(2) का

(3) की

(4) में

Q.166 दिए गए विकल्पों में से छेद का पर्यायवाची शब्द नहीं है

(1) विवर

(2) छिद्र

(3) **विल्व ✔**

(4) बिल

Q.167 निम्नलिखित वाक्य के रिक्त स्थान में उचित क्रिया की पूर्ति कीजिए - 'सूरज निकलते ही मैं बिस्तर से _____।'

(1) उड़ गया

(2) चल पड़ा

(3) पढ़ने लगा

(4) **उठ गया ✔**

Q.168 मैं _____ नहीं रोया ।

उपर्युक्त वाक्य में रिक्त स्थान की पूर्ति के लिए उचित क्रिया-विशेषण शब्द का चयन करें –

(1) छोटी

(2) **तो ✔**

(3) लगभग

(4) बराबर

Q.169 'किसी व्यक्ति में असाधारण गुण,कोई ख़ास खूबी या विशेष गुण होना' किस मुहावरे से व्यक्त होता है?

(1) सुदामा की कुटिया

(2) सूरज को दीपक दिखाना

(3) **सुर्ख़ाब के पर लगना ✔**

(4) सूरज ढलना

Q.170 'जन्म से सौ वर्ष का समय' उपर्युक्त वाक्यांश के लिए एक सार्थक शब्द चुनें -

(1) शतक

(2) **जन्मशती ✔**

(3) दशक

(4) वर्ष

Q.171 निम्नलिखित वाक्य के रिक्त स्थान को क्रिया शब्द से पूर्ण करें - 'मजदूर मेहनत करके अपने परिवार को हैं ।

(1) खिलाना

(2) **खिलाते ✔**

(3) खाना

(4) पढ़

Q.172 निम्नलिखित वाक्य में उचित क्रिया का प्रयोग कर वाक्य पूर्ण करें- 'मुझे पानी है '

(1) सोना

(2) खाना

(3) करना

(4) **पीना ✔**

Q.173 दिए गए वाक्यों के लिखने का सही क्रम क्या है?
1. बात इतनी बढ़ी कि मामला कचहरी तक जा पहुंचा।
2. दोनों व्यापारियों में झगड़ा होने लगा।
3. विद्वान न्यायाधीश ने दोनों पक्षों का कथन लिख लिया।
4. न्यायाधीश एकदम सारी वास्तविकता समझ गए।

(1) 2431
(2) 2341
(3) **2134 ✔**
(4) 4312

Q.174 उपयुक्त क्रिया-विशेषण का चयनकर निम्नलिखित वाक्य को पूर्ण कीजिए।
' वह .....धीरे-धीरे चलता है'।

(1) अभी
(2) **बहुत ✔**
(3) वहां
(4) फिर

Q.175 निम्नलिखित विकल्पों में से उचित कारक चिन्ह वाला विकल्प का चयन कर वाक्य पूर्ण करें – कविता ने लेखराज ..... पुस्तक दी ।

(1) लिए
(2) **को ✔**
(3) ने
(4) में

Q.176 उपयुक्त क्रिया का चयन कर दिए गए वाक्य को पूर्ण कीजिए।
'मोहन घर आये मेहमानों को पानी .....है।'

(1) नहलाता
(2) **पिलाता ✔**
(3) उड़ेलता
(4) बुझाता

Q.177 उचित शब्द का प्रयोग कर वाक्य को पूर्ण करें- रवि एक शिल्पकार है।

(1) गहरी
(2) कोटि
(3) **दक्ष ✔**
(4) उच्च

Q.178 'गोली का घाव भर जाता है पर बोली का नहीं ' लोकोक्ति का सही अर्थ होगा -

(1) जिसके दिमाग में स्थिरता तनिक भी न हो
(2) **दुर्व्यवहार मनुष्य कभी नहीं भूलता ✔**
(3) अपने स्वार्थ के सम्मुख दूसरे के लाभ- हानि की कोई चिंता नहीं
(4) जल्दी में किया गया काम अच्छा नहीं होता है

QuickSarkari.com | WhatsApp Channel | Telegram: t.me/quick_sarkari

Q.179 रिक्त स्थान में उपयुक्त अकर्मक क्रिया के प्रयोग से वाक्य पूर्ण करें।
बालक बहुत देर से ..... रहा है।

(1) दूध पी
(2) किताब पढ़
(3) **रो ✔**
(4) खाना खा

Q.180 निम्नलिखित विकल्पों में से सही वाक्य क्रम पहचानें -

(1) **नियमित योग चंचल मन को नियंत्रित करता है। ✔**
(2) मन को नियंत्रित करता है नियमित योग चंचल।
(3) करता है नियंत्रित नियमित योग चंचल मन को।
(4) नियमित योग चंचल मन को नियंत्रित है करता।

Q.181 'क्या पता खट्टा कि मीठा' लोकोक्ति का क्या अर्थ है?

(1) अंत में भले बन बैठे
(2) उसमें दया नही होती
(3) **इस बात में संशय है ✔**
(4) ऊपर से मित्र

Q.182 'काले कोसों' मुहावरे का क्या अर्थ है?

(1) उदारता से
(2) नष्ट करना
(3) **बहुत दूर ✔**
(4) किस काम का

Q.183 नीचे दिए गए वाक्यों में से 'आगामी' का विलोम वाक्य चुनिए।

(1) हर क्षण का संशय ठीक नहीं है।
(2) उसने आकाश-पाताल एक कर दिया।
(3) **विगत वर्षों में उसका जीवन बहुत कष्टमय रहा। ✔**
(4) हमें मनुष्य होने की गरिमा को नहीं भूलना चाहिए।

Q.184 निम्नलिखित वाक्य के रेखांकित शब्द का विलोम बताएं - 'भाई को मार कर राजकुमार राजा बन बैठा ।'

(1) नृप
(2) **रंक ✔**
(3) नरेश
(4) भूपाल

Q.185 निम्न में से 'गुरेज न करना' मुहावरे का सही अर्थ कौन-सा है ?

(1) गला घोटना
(2) विलक्षण घटना होना
(3) **कुछ करने से पीछे न हटना ✔**
(4) बहुत हानि करना

Q.186 दिए गये वाक्य में रेखांकित वर्तनी की अशुद्धि को पहचान कर निम्नांकित विकल्पों से शुद्ध शब्द का चयन करें- रात्रिभोज से पूर्व दोनों देशों के प्रधानमन्त्रियों में आनोप्चारिक वार्ता होती रही।

(1) अनौपचारिक ✔
(2) अनोपचरिक
(3) आनौप्चारिक
(4) आनुपचरिक

Q.187 'अपना रख पराया चख' लोकोक्ति का सही अर्थ होगा—

(1) पहले दूसरों का खाना और फिर अपना
(2) अपना स्वयं का भोजन चखना
(3) पहले दोस्तों का भोजन चखना
(4) अपना बचा कर दूसरों का हड़पना ✔

Q.188 निम्नलिखित वाक्य के रेखांकित शब्द का पर्यायवाची कौन-सा है - 'मानव के पिताजी की आकस्मिक मृत्यु से सभी दुःखी हैं ।'

(1) प्राणांत ✔
(2) कोमल
(3) मलिन
(4) जलद

Q.189 प्रस्तुत लोकोक्ति का उपयुक्त अर्थ चुनिए।
'ईंट की देवी,माँगे का प्रसाद'

(1) दूसरों की सफलता से ईर्ष्या करने वाला व्यक्ति
(2) जो व्यक्ति सच्चे मन से पूजा करता है, वही फल पाता है
(3) बिना योग्यता के ऊँची अपेक्षाएँ रखने वाला व्यक्ति ✔
(4) जब कोई व्यक्ति विनम्रता से व्यवहार करे

Q.190 निम्नलिखित वाक्य में रेखांकित शब्द के लिए उपयुक्त विलोम शब्द चुने।
नगर में रहने वाले व्यक्ति को नागरिक कहते हैं।

(1) नवीन
(2) ग्रामीण ✔
(3) अनित्य
(4) सात्विक

Q.191 निम्नलिखित में से उपर्युक्त गद्यांश के लिए सबसे उपयुक्त शीर्षक का चयन कीजिए।

(1) प्रेमचंद का समाज दर्शन ✔
(2) धर्म और राजनीति का विश्व पर प्रभाव
(3) किसानों की समस्या और समाज
(4) अतीत और भविष्य की तुलना

Q.192 उपर्युक्त गद्यांश का केन्द्रीय विषय क्या है?

(1) प्रेमचंद की वर्तमान के प्रति ईमानदारी और सक्रियता ✔
(2) प्रेमचंद के साहित्य का वर्णन करना
(3) प्रेमचंद की उपन्यास की प्रशंसा करना।
(4) समाज का वर्णन और उसकी तुलना

Q.193 उपर्युक्त गद्यांश के अनुसार प्रेमचंद ने संस्कृति और संपत्ति को किसका पर्याय माना है?

(1) भविष्य के लिए संचित उपाय

(2) जीवन जीने के लिए अत्यंत उपयोगी

(3) बाप दादाओं के ऋण का स्वरूप

(4) बाहरी बंधन और मनुष्यता का बाधक ✔

Q.194 उपर्युक्त गद्यांश में आए शब्द 'संगृहीत' का पर्यायवाची इनमें से कौन सा शब्द नहीं है?

(1) संचित

(2) संकलित

(3) समाहित

(4) विशेषण ✔

Q.195 उपर्युक्त गद्यांश में आए शब्द 'भूतकाल' का विलोम शब्द बताइए।

(1) आदिकाल

(2) अतीत

(3) बीता हुआ कल

(4) भविष्यकाल ✔

Q.196 गद्यांश के अनुसार पुस्तकों के चयन के संबंध में क्या होना चाहिए?

(1) केवल प्रसिद्ध पुस्तकों का चयन करना चाहिए।

(2) किसी शिक्षक के निर्देश मानने चाहिए।

(3) कोई निश्चित सिद्धान्त नहीं होना चाहिए। ✔

(4) कठोर नियम होने चाहिए।

Q.197 पाठ के अनुसार व्यक्ति को पुस्तकों का चयन किस आधार पर करना चाहिए?

(1) केवल पाठ्यक्रम के अनुसार

(2) दूसरों की राय पर

(3) लेखक की प्रसिद्धि के आधार पर

(4) अपनी इच्छा और तार्किक ज्ञान पर ✔

Q.198 गद्यांश में पुस्तक-चयन का मुख्य उद्देश्य क्या बताया गया है?

(1) गहरा और व्यापक सुख प्राप्त करना ✔

(2) परीक्षा में सफलता प्राप्त करना

(3) समाज में प्रतिष्ठा पाना

(4) समय व्यतीत करना

Q.199 लोगों में उपन्यास, पद्य और जीवनियों के बारे में कैसी धारणा बताई गई है?

(1) वे केवल मनोरंजन के साधन हैं।

(2) वे भ्रामक और गलत धारणाओं से ग्रसित हैं। ✔

(3) वे अत्यंत उपयोगी हैं।

(4) वे केवल विद्वानों के लिए हैं।

Q.200 गद्यांश के अनुसार हमें क्या करना चाहिए?

(1) पुस्तकों के प्रति भ्रांत धारणाओं को त्यागना चाहिए। ✔

(2) सभी प्रकार की पुस्तकों से दूरी बनानी चाहिए।

(3) केवल कविता पढ़नी चाहिए।

(4) केवल गद्य पढ़ना चाहिए।

Answer Key / उत्तर कुंजी

1	2	3	4	5	6	7	8	9	10	11	12	13	14	15
1	3	3	1	2	1	4	3	2	2	3	1	1	2	4
16	17	18	19	20	21	22	23	24	25	26	27	28	29	30
1	3	4	1	3	1	3	3	1	1	4	3	1	2	4
31	32	33	34	35	36	37	38	39	40	41	42	43	44	45
3	3	4	2	3	1	1	2	4	3	4	3	3	2	2
46	47	48	49	50	51	52	53	54	55	56	57	58	59	60
4	4	1	2	3	4	4	1	3	2	1	1	3	1	3
61	62	63	64	65	66	67	68	69	70	71	72	73	74	75
3	3	2	4	4	4	4	3	1	2	3	2	4	3	3
76	77	78	79	80	81	82	83	84	85	86	87	88	89	90
2	4	2	1	4	4	1	4	2	1	3	1	2	4	4
91	92	93	94	95	96	97	98	99	100	101	102	103	104	105
2	2	1	4	3	1	3	3	4	2	3	3	1	2	2
106	107	108	109	110	111	112	113	114	115	116	117	118	119	120
2	1	3	2	1	2	4	4	2	2	2	1	1	1	2
121	122	123	124	125	126	127	128	129	130	131	132	133	134	135
3	1	4	1	2	3	1	4	2	2	3	2	2	1	2
136	137	138	139	140	141	142	143	144	145	146	147	148	149	150
3	4	3	2	1	3	4	4	1	1	1	4	1	2	4
151	152	153	154	155	156	157	158	159	160	161	162	163	164	165
2	3	1	2	2	2	1	3	3	1	1	1	4	1	1
166	167	168	169	170	171	172	173	174	175	176	177	178	179	180
3	4	2	3	2	2	4	3	2	2	2	3	2	3	1
181	182	183	184	185	186	187	188	189	190	191	192	193	194	195
3	3	3	2	3	1	4	1	3	2	1	1	4	4	4
196	197	198	199	200										
3	4	1	2	1										

QuickSarkari.com | WhatsApp Channel | Telegram: t.me/quick_sarkari

Quick Sarkari

Thank you for studying with QuickSarkari!

Get the latest Sarkari Naukri notifications, admit cards, results, answer keys and free previous-year papers first - follow us on WhatsApp and Telegram.

Visit www.quicksarkari.com

Join our WhatsApp Channel

https://whatsapp.com/channel/0029VaxxbrREquiPoXTWM229

Join our Telegram Channel

https://t.me/quick_sarkari

Share this PDF with your friends preparing for DSSSB exams.