DSSSB PREVIOUS YEAR PAPER WITH ANSWER KEY

DSSSB Assistant Superintendent

4 July 2026 · Shift 3

डीएसएसएसबी सहायक अधीक्षक – 4 जुलाई 2026, शिफ्ट 3 का प्रश्न पत्र, उत्तर कुंजी सहित

200	120 min	1 / −0.25	EN + HI
Questions / प्रश्न	Duration / समय	Marks per Q / अंक	Language / भाषा

Sections: General Intelligence and Reasoning Ability, General Awareness, Arithmetical and Numerical Ability, English Language and Comprehension, Hindi Language and Comprehension

INSIDE THIS PDF / इस PDF में

Question Paper in English + Hindi with Answer Key (correct option marked in green) + answer table Page 2–41
प्रश्न पत्र अंग्रेज़ी + हिंदी में, उत्तर कुंजी सहित (सही विकल्प हरे रंग में) + उत्तर तालिका

HOW TO USE THIS PAPER / इस पेपर का उपयोग कैसे करें

1. Attempt the paper first as a timed online mock test (link below).
   पहले नीचे दिए लिंक से इसे टाइमर के साथ ऑनलाइन मॉक टेस्ट के रूप में हल करें।
2. Check your score, section-wise analysis and solutions online.
   ऑनलाइन अपना स्कोर, खंड-वार विश्लेषण और हल देखें।
3. Use this PDF for revision. Correct answers are shown in green.
   दोहराने के लिए इस PDF का उपयोग करें। सही उत्तर हरे रंग में दिए गए हैं।

Attempt this paper as a FREE online mock test

इस पेपर को फ्री ऑनलाइन मॉक टेस्ट के रूप में हल करें – टाइमर, स्कोर और हल के साथ

https://quicksarkari.com/dsssb-assistant-superintendent-04-july-2026-shift-3-mock-test/

All DSSSB Assistant Superintendent papers and mock tests: **quicksarkari.com/dsssb-mock-test/#assistant-superintendent**

Join WhatsApp Channel | Join Telegram Channel

DSSSB Assistant Superintendent – Question Paper (English + Hindi)

DSSSB सहायक अधीक्षक – प्रश्न पत्र (अंग्रेज़ी + हिंदी)

Exam held on 4 July 2026, Shift 3 · 200 questions · correct answers marked ✔ in green
परीक्षा तिथि 4 जुलाई 2026, शिफ्ट 3 · 200 प्रश्न · सही उत्तर हरे रंग में ✔ से चिह्नित

> The official paper for this shift was in English. The Hindi version of each question is a translation prepared by QuickSarkari; the language-section questions are shown as asked.
> इस शिफ्ट का आधिकारिक प्रश्न पत्र अंग्रेज़ी में था। प्रत्येक प्रश्न का हिंदी संस्करण QuickSarkari द्वारा तैयार किया गया अनुवाद है; भाषा खंड के प्रश्न मूल रूप में दिए गए हैं।

General Intelligence and Reasoning Ability

Q.1 A, B, C, D, E, F and G are sitting around a circular table facing the centre.
G sits to the immediate left of F. D sits to the immediate left of B. B sits second to the left of A. E sits third to the left of F. How many people sit between A and F when counted from the right of A?

A, B, C, D, E, F और G एक वृत्ताकार मेज़ के चारों ओर केंद्र की ओर मुख करके बैठे हैं।
G, F के ठीक बाएँ बैठा है। D, B के ठीक बाएँ बैठा है। B, A के बाएँ से दूसरे स्थान पर बैठा है। E, F के बाएँ से तीसरे स्थान पर बैठा है।
A के दाएँ से गिनने पर A और F के बीच कितने व्यक्ति बैठे हैं?

(1) 1 ✔
(2) 3
(3) 2
(4) 4

Q.2 F, G, H, J, K and L live on six different floors of the same building. The lowermost floor in the building is numbered 1, the floor above it, number 2 and so on till the topmost floor is numbered 6. Only K lives above H. J lives immediately below
H. Only G lives below L. How many people live between F and G?

F, G, H, J, K और L एक ही इमारत की छह अलग-अलग मंज़िलों पर रहते हैं। इमारत की सबसे निचली मंज़िल की संख्या 1 है, उसके ऊपर वाली मंज़िल की संख्या 2 है और इसी प्रकार सबसे ऊपरी मंज़िल की संख्या 6 है। केवल K, H के ऊपर रहता है।
J, H के ठीक नीचे रहता है। केवल G, L के नीचे रहता है। F और G के बीच कितने व्यक्ति रहते हैं?

(1) Four / चार
(2) Three / तीन
(3) Two / दो
(4) One / एक ✔

Q.3 This question is based on the following words LAX FEO SIT BMW If in each of the words, each letter is changed to the next letter in the English alphabetical order, how many words thus formed will have a vowel?

यह प्रश्न नीचे दिए गए शब्दों पर आधारित है LAX FEO SIT BMW यदि प्रत्येक शब्द में, प्रत्येक अक्षर को अंग्रेजी वर्णमाला क्रम में उसके अगले अक्षर से बदल दिया जाए, तो इस प्रकार बने कितने शब्दों में एक स्वर होगा?

(1) Three / तीन
(2) None / कोई नहीं
(3) One / एक ✔
(4) Two / दो

Q.4 A is the brother of B. B is the father of C. D is the brother of C. E is the son of D. How is A related to E?
A, B का भाई है। B, C का पिता है। D, C का भाई है। E, D का पुत्र है। A, E से किस प्रकार संबंधित है?

(1) Father's father's brother / पिता के पिता का भाई ✔
(2) Father's father / पिता के पिता
(3) Father / पिता
(4) Father's brother / पिता का भाई

Q.5 Refer to the following letter and symbol series and answer the question that follows. Counting to be done from left to right only.
(Left) S F £ E S © N @ O £ I & A K & & € I Q £ & S (Right)
How many such symbols are there that are immediately preceded by a letter and also immediately followed by a letter?
निम्नलिखित अक्षर और प्रतीक श्रृंखला को देखें और नीचे दिए गए प्रश्न का उत्तर दें। गिनती केवल बाएँ से दाएँ की जानी है।
(बाएँ) S F £ E S © N @ O £ I & A K & & € I Q £ & S (दाएँ)
ऐसे कितने प्रतीक हैं जिनके ठीक पहले एक अक्षर है और ठीक बाद भी एक अक्षर है?

(1) Five / पाँच ✔
(2) Seven / सात
(3) Six / छह
(4) Four / चार

Q.6 In a certain code language, '&*3%' is coded as 'CENT' and '*3&$' is coded as 'TENS'.
What is the code for '$' in the given code language?
एक निश्चित कूट भाषा में, '&*3%' को 'CENT' के रूप में कूटबद्ध किया जाता है और '*3&$' को 'TENS' के रूप में कूटबद्ध किया जाता है।
दी गई कूट भाषा में '$' के लिए कूट क्या है?

(1) N
(2) S ✔
(3) T
(4) E

Q.7 Refer to the given number and symbol series and answer the question that follows. Counting to be done from left to right only.
(Left) * £ 5 7 + 2 $ 1 3 Ω 9 # & % 4 6 @ 8 (Right)
How many such symbols are there, each of which is immediately preceded by a number and also immediately followed by another number?
दी गई संख्या और प्रतीक श्रृंखला को देखें और नीचे दिए गए प्रश्न का उत्तर दें। गिनती केवल बाएँ से दाएँ की जानी है।
(बाएँ) * £ 5 7 + 2 $ 1 3 Ω 9 # & % 4 6 @ 8 (दाएँ)
ऐसे कितने प्रतीक हैं, जिनमें से प्रत्येक के ठीक पहले एक संख्या है और ठीक बाद भी एक अन्य संख्या है?

(1) 5
(2) 4 ✔
(3) 2
(4) 3

QuickSarkari.com | WhatsApp Channel | Telegram: t.me/quick_sarkari

Q.8 The position(s) of how many letters will remain unchanged if each letter in the word BIFROST is arranged in alphabetical order?

यदि शब्द BIFROST के प्रत्येक अक्षर को वर्णमाला क्रम में व्यवस्थित किया जाए, तो कितने अक्षरों की स्थिति अपरिवर्तित रहेगी?

(1) 2

(2) 1

(3) 4

(4) 3 ✔

Q.9 This question is based on the five, three-digit numbers given below.

(Left) 158 754 826 612 573 (Right)

(Example- 697 – First digit = 6, second digit = 9 and third digit = 7)

If 1 is added to the first digit of every number, then in how many numbers will the first digit be exactly divisible by the second digit?

यह प्रश्न नीचे दी गई तीन अंकों वाली पाँच संख्याओं पर आधारित है।

(बाएँ) 158 754 826 612 573 (दाएँ)

(उदाहरण- 697 – पहला अंक = 6, दूसरा अंक = 9 और तीसरा अंक = 7)

यदि प्रत्येक संख्या के पहले अंक में 1 जोड़ दिया जाए, तो कितनी संख्याओं में पहला अंक, दूसरे अंक से पूर्णतः विभाज्य होगा?

(1) None / कोई नहीं

(2) Two / दो

(3) Three / तीन

(4) One / एक ✔

Q.10 I, J, K, S, T and U live on six different floors of the same building. The lowermost floor in the building is numbered 1, the floor above it, number 2 and so on, till the topmost floor is numbered 6. Only two people live between I and T. Only S lives above J. U lives on an even numbered floor. I lives on the lowermost floor. How many people live between K and S?

I, J, K, S, T और U एक ही इमारत की छह अलग-अलग मंज़िलों पर रहते हैं। इमारत की सबसे निचली मंज़िल की संख्या 1 है, उसके ऊपर वाली मंज़िल की संख्या 2 है और इसी प्रकार सबसे ऊपरी मंज़िल की संख्या 6 है। I और T के बीच केवल दो व्यक्ति रहते हैं। केवल S, J के ऊपर रहता है। U एक सम संख्या वाली मंज़िल पर रहता है। I सबसे निचली मंज़िल पर रहता है। K और S के बीच कितने व्यक्ति रहते हैं?

(1) Four / चार

(2) One / एक

(3) Two / दो ✔

(4) Three / तीन

Q.11 Each of A, B, C, D, E, F, and G has a shift on a different day of the week starting from Monday and ending on Sunday. A works on Monday. B's shift is on the day immediately after A. There are three shifts between C and E. F works before G, but not immediately before G. C's shift is not on Friday but immediately after B. Which day does D work?

A, B, C, D, E, F और G में से प्रत्येक की शिफ्ट सप्ताह के एक अलग दिन है, जो सोमवार से शुरू होकर रविवार को समाप्त होता है। A सोमवार को काम करता है। B की शिफ्ट A के ठीक अगले दिन है। C और E के बीच तीन शिफ्ट हैं। F, G से पहले काम करता है, लेकिन G से ठीक पहले नहीं। C की शिफ्ट शुक्रवार को नहीं है, बल्कि B के ठीक बाद है। D किस दिन काम करता है?

(1) Sunday / रविवार

(2) Thursday / गुरुवार

(3) Friday / शुक्रवार ✔

(4) Wednesday / बुधवार

Q.12 A, B, C, D, E, F and G are sitting around a circular table facing the centre.
Only two people sit between D and F when counted from the right of D. Only three people sit between G and A when counted from the right of A. F sits to the immediate right of A. B sits to the immediate right of C.
How many people sit between A and B when counted from the right of A?
A, B, C, D, E, F और G एक वृत्ताकार मेज़ के चारों ओर केंद्र की ओर मुख करके बैठे हैं।
D के दाएँ से गिनने पर D और F के बीच केवल दो व्यक्ति बैठे हैं। A के दाएँ से गिनने पर G और A के बीच केवल तीन व्यक्ति बैठे हैं। F, A के ठीक दाएँ बैठा है। B, C के ठीक दाएँ बैठा है।
A के दाएँ से गिनने पर A और B के बीच कितने व्यक्ति बैठे हैं?

(1) 1
(2) 4
(3) 3
(4) 2 ✔

Q.13 In a certain code language, A+ B means 'A is the husband of B'
A – B means 'A is the sister of B'
A x B means 'A is the mother of B'
A ÷ B means 'A is the father of B'
Based on the above, how is L related to K if 'L x Z + O x K'?
एक निश्चित कूट भाषा में, A+ B का अर्थ है 'A, B का पति है'
A – B का अर्थ है 'A, B की बहन है'
A x B का अर्थ है 'A, B की माँ है'
A ÷ B का अर्थ है 'A, B का पिता है'
उपर्युक्त के आधार पर, यदि 'L x Z + O x K' है, तो L, K से किस प्रकार संबंधित है?

(1) Father's mother / पिता की माँ ✔
(2) Mother's father / माँ के पिता
(3) Father's father / पिता के पिता
(4) Mother's mother / माँ की माँ

Q.14 GLOV is related to JOIP in a certain way based on the English alphabetical order. In the same way, SXQX is related to VAKR. To which of the given options is BGYF related, in the same way?
अंग्रेजी वर्णमाला क्रम के आधार पर GLOV एक निश्चित प्रकार से JOIP से संबंधित है। उसी प्रकार, SXQX, VAKR से संबंधित है। उसी प्रकार BGYF दिए गए विकल्पों में से किससे संबंधित है?

(1) EJSZ ✔
(2) EJZS
(3) ESZK
(4) ESDR

Q.15 The position(s) of how many letters will remain unchanged if each of the letters in the word EXPECTORATE is arranged in reverse alphabetical order?
यदि शब्द EXPECTORATE के प्रत्येक अक्षर को उल्टे वर्णमाला क्रम में व्यवस्थित किया जाए, तो कितने अक्षरों की स्थिति अपरिवर्तित रहेगी?

(1) One / एक
(2) Two / दो
(3) Zero / शून्य ✔
(4) Three / तीन

Q.16 Seven boxes G, H, I, J, K, C and D are kept one over the other but not necessarily in the same order. No box is kept above I. Only three boxes are kept between I and C. Only one box is kept between J and K. K is kept immediately above C. Only four boxes are kept between J and D. G is kept at some place above H. Which box is kept second below G?

सात बक्से G, H, I, J, K, C और D एक के ऊपर एक रखे गए हैं, लेकिन जरूरी नहीं कि इसी क्रम में हों। I के ऊपर कोई बक्सा नहीं रखा गया है। I और C के बीच केवल तीन बक्से रखे गए हैं। J और K के बीच केवल एक बक्सा रखा गया है। K, C के ठीक ऊपर रखा गया है।
J और D के बीच केवल चार बक्से रखे गए हैं। G, H के ऊपर किसी स्थान पर रखा गया है। G से दूसरे स्थान नीचे कौन-सा बक्सा रखा गया है?

(1) K
(2) **C ✔**
(3) J
(4) D

Q.17 Refer to the following letter series and answer the question. (Counting to be done from left to right only.)
(Left) C Y A Z G T Z F B E E S N H C I N R G N P (Right)
How many such consonants are there, each of which is immediately preceded by a vowel and also immediately followed by a vowel?

निम्नलिखित अक्षर श्रृंखला को देखें और प्रश्न का उत्तर दें। (गिनती केवल बाएँ से दाएँ की जानी है।)
(बाएँ) C Y A Z G T Z F B E E S N H C I N R G N P (दाएँ)
ऐसे कितने व्यंजन हैं, जिनमें से प्रत्येक के ठीक पहले एक स्वर है और ठीक बाद भी एक स्वर है?

(1) One / एक
(2) Two / दो
(3) **None / कोई नहीं ✔**
(4) Three / तीन

Q.18 Select the triad that follows the same pattern as that followed by the two triads given below. Both triads follow the same pattern.
MH-OJ-QT OJ-QL-SV

उस त्रिक का चयन करें जो उसी पैटर्न का अनुसरण करता है जिसका अनुसरण नीचे दिए गए दो त्रिक करते हैं। दोनों त्रिक एक ही पैटर्न का अनुसरण करते हैं।
MH-OJ-QT OJ-QL-SV

(1) RL-SM-UY
(2) RL-SN-UY
(3) QL-SN-UY
(4) **QL-SN-UX ✔**

Q.19 Select the option that is related to the fifth letter-cluster in the same way as the second letter-cluster is related to the first letter-cluster and the fourth letter-cluster is related to the third letter-cluster.
NQSU : MNJKHIFG :: ORTV : LMIJGHEF :: QTVX : ?

उस विकल्प का चयन करें जो पाँचवें अक्षर-समूह से उसी प्रकार संबंधित है जिस प्रकार दूसरा अक्षर-समूह पहले अक्षर-समूह से संबंधित है और चौथा अक्षर-समूह तीसरे अक्षर-समूह से संबंधित है।
NQSU : MNJKHIFG :: ORTV : LMIJGHEF :: QTVX : ?

(1) **JKGHEFCD ✔**
(2) JLGHECCD
(3) JKGIEFCE
(4) JKGIEGCD

Q.20 In a certain code language, 'FATE' is coded as '9403' and 'LEAF' is coded as '3064'.
What is the code for 'L' in the given code language?
एक निश्चित कूट भाषा में, 'FATE' को '9403' के रूप में कूटबद्ध किया जाता है और 'LEAF' को '3064' के रूप में कूटबद्ध किया जाता है।
दी गई कूट भाषा में 'L' के लिए कूट क्या है?

(1) 4
(2) 6 ✔
(3) 0
(4) 3

Q.21 Select the set in which the numbers are related in the same way as are the numbers of the following sets.
(NOTE: Operations should be performed on the whole numbers, without breaking down the numbers into their constituent digits. E.g. 13 – Operations on 13 such as adding / subtracting /multiplying etc. to 13 can be performed. Breaking down 13 into 1 and 3 and then performing mathematical operations on 1 and 3 is not allowed.)
(12, 10, 484)
(13, 8, 441)
उस समुच्चय का चयन करें जिसमें संख्याएँ उसी प्रकार संबंधित हैं जिस प्रकार निम्नलिखित समुच्चयों की संख्याएँ संबंधित हैं।
(ध्यान दें: संक्रियाएँ पूर्ण संख्याओं पर की जानी चाहिए, संख्याओं को उनके घटक अंकों में तोड़े बिना। उदाहरण के लिए 13 – 13 पर संक्रियाएँ जैसे 13 में जोड़ना/घटाना/गुणा करना आदि किया जा सकता है। 13 को 1 और 3 में तोड़कर फिर 1 और 3 पर गणितीय संक्रियाएँ करने की अनुमति नहीं है।)
(12, 10, 484)
(13, 8, 441)

(1) (19, 6, 484)
(2) (18, 5, 529) ✔
(3) (20, 6, 576)
(4) (16, 6, 441)

Q.22 Based on the English alphabetical order, three of the following four letter cluster pairs are alike in a certain way and thus form a group. Which is the one that does not belong to that group?
(Note: The odd man out is not based on the number of consonants/vowels or their position in the letter cluster.)
अंग्रेजी वर्णमाला क्रम के आधार पर, निम्नलिखित चार अक्षर-समूह युग्मों में से तीन किसी निश्चित प्रकार से एक समान हैं और इस प्रकार एक समूह बनाते हैं। वह कौन-सा युग्म है जो उस समूह से संबंधित नहीं है?
(ध्यान दें: असंगत युग्म, व्यंजनों/स्वरों की संख्या या अक्षर-समूह में उनके स्थान पर आधारित नहीं है।)

(1) LQ – PV ✔
(2) ZO – DS
(3) HW – LA
(4) RG – VK

QuickSarkari.com | WhatsApp Channel | Telegram: t.me/quick_sarkari

Q.23 If 'A' stands for '÷', 'B' stands for '×', 'C' stands for '+' and 'D' stands for '−', then what will come in place of the question mark (?) in the following equation?
50 B 28 A 14 C 21 D 44 = ?
यदि 'A' का अर्थ '÷', 'B' का अर्थ '×', 'C' का अर्थ '+' और 'D' का अर्थ '−' है, तो निम्नलिखित समीकरण में प्रश्नवाचक चिह्न (?) के स्थान पर क्या आएगा?
50 B 28 A 14 C 21 D 44 = ?

(1) 75
(2) 79
(3) 78
(4) **77** ✔

Q.24 Select the option figure in which the given figure (X) is embedded as its part (rotation is NOT allowed).

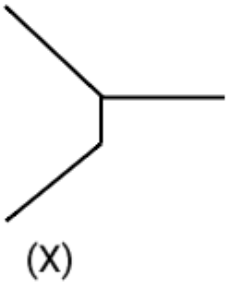

(X)

उस विकल्प आकृति का चयन करें जिसमें दी गई आकृति (X) उसके भाग के रूप में निहित है (घुमाने की अनुमति नहीं है)।

(1) 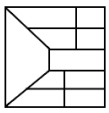 ✔
(2) 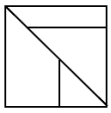
(3) 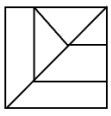
(4) 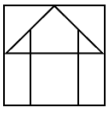

Q.25 What should come in place of '?' in the given series based on the English alphabetical order?
IDR, GFO, EHL, CJI, ?
अंग्रेजी वर्णमाला क्रम के आधार पर दी गई श्रृंखला में '?' के स्थान पर क्या आना चाहिए?
IDR, GFO, EHL, CJI, ?

(1) DAS
(2) PAL
(3) **ALF** ✔
(4) LSA

QuickSarkari.com | WhatsApp Channel | Telegram: t.me/quick_sarkari

Q.26 Based on the English alphabetical order, three of the following four letter-cluster pairs are alike in a certain way and thus form a group. Which is the one that does not belong to that group?
(Note: The odd one out is not based on the number of consonants/vowels or their position in the letter-cluster.)
अंग्रेजी वर्णमाला क्रम के आधार पर, निम्नलिखित चार अक्षर-समूह युग्मों में से तीन किसी निश्चित प्रकार से एक समान हैं और इस प्रकार एक समूह बनाते हैं। वह कौन-सा युग्म है जो उस समूह से संबंधित नहीं है?
(ध्यान दें: असंगत युग्म, व्यंजनों/स्वरों की संख्या या अक्षर-समूह में उनके स्थान पर आधारित नहीं है।)

(1) MP - LO
(2) OR - LD ✔
(3) KN - JM
(4) SV - RU

Q.27 In the following number-pairs, the second number is obtained by applying certain mathematical operations to the first number. Select the set in which the numbers are related in the same way as are the numbers of the following sets. (NOTE : Operations should be performed on the whole numbers, without breaking down the numbers into its constituent digits. E.g. 13 – Operations on 13 such as adding /subtracting /multiplying etc. to 13 can be performed. Breaking down 13 into 1 and 3 and then performing mathematical operations on 1 and 3 is not allowed.)
(11, 118)
(9, 78)
निम्नलिखित संख्या-युग्मों में, पहली संख्या पर कुछ गणितीय संक्रियाएँ करके दूसरी संख्या प्राप्त की जाती है। उस समुच्चय का चयन करें जिसमें संख्याएँ उसी प्रकार संबंधित हैं जिस प्रकार निम्नलिखित समुच्चयों की संख्याएँ संबंधित हैं।
(ध्यान दें: संक्रियाएँ पूर्ण संख्याओं पर की जानी चाहिए, संख्याओं को उनके घटक अंकों में तोड़े बिना। उदाहरण के लिए 13 – 13 पर संक्रियाएँ जैसे 13 में जोड़ना/घटाना/गुणा करना आदि किया जा सकता है। 13 को 1 और 3 में तोड़कर फिर 1 और 3 पर गणितीय संक्रियाएँ करने की अनुमति नहीं है।)
(11, 118)
(9, 78)

(1) (6, 33) ✔
(2) (15, 225)
(3) (12, 147)
(4) (5, 28)

Q.28 What should come in place of the question mark (?) in the given series?
10, 30, 15, 45, 22.5, ?
दी गई श्रृंखला में प्रश्नवाचक चिह्न (?) के स्थान पर क्या आना चाहिए?
10, 30, 15, 45, 22.5, ?

(1) 11.25
(2) 20.25
(3) 67.5 ✔
(4) 33.75

Q.29 Select the set in which the numbers are related in the same way as are the numbers of the following sets.
(NOTE: Operations should be performed on the whole numbers, without breaking down the numbers into its constituent digits. E.g. 13 – Operations on 13 such as adding / subtracting /multiplying etc. to 13 can be performed. Breaking down 13 into 1 and 3 and then performing mathematical operations on 1 and 3 is not allowed)
(12,5,240)
(16,4,256)

उस समुच्चय का चयन करें जिसमें संख्याएँ उसी प्रकार संबंधित हैं जिस प्रकार निम्नलिखित समुच्चयों की संख्याएँ संबंधित हैं।
(ध्यान दें: संक्रियाएँ पूर्ण संख्याओं पर की जानी चाहिए, संख्याओं को उनके घटक अंकों में तोड़े बिना। उदाहरण के लिए 13 – 13 पर संक्रियाएँ जैसे 13 में जोड़ना/घटाना/गुणा करना आदि किया जा सकता है। 13 को 1 और 3 में तोड़कर फिर 1 और 3 पर गणितीय संक्रियाएँ करने की अनुमति नहीं है।)
(12,5,240)
(16,4,256)

(1) (17,5,240)
(2) (14,6,338)
(3) (15,7,420) ✔
(4) (18,4,298)

Q.30 If 2 is added to each odd digit and 1 is subtracted from each even digit in the number 7324156, what will be the difference between the highest and lowest digits of the number so formed?

यदि संख्या 7324156 में प्रत्येक विषम अंक में 2 जोड़ा जाए और प्रत्येक सम अंक में से 1 घटाया जाए, तो इस प्रकार बनी संख्या के सबसे बड़े और सबसे छोटे अंकों के बीच का अंतर क्या होगा?

(1) 6
(2) 5
(3) 7
(4) 8 ✔

Q.31 Identify the figure given in the options which when put in place of the question mark (?) will logically complete the series.

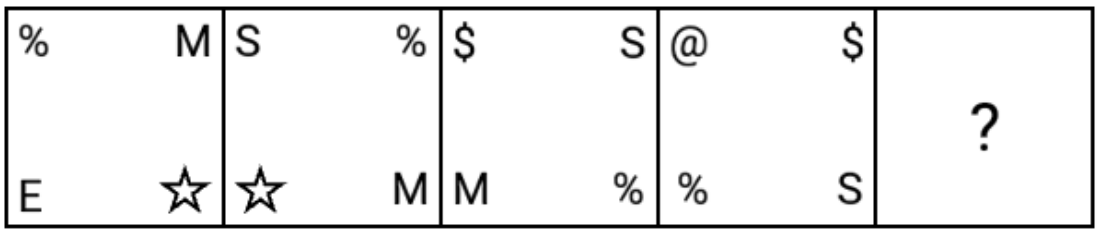

विकल्पों में दी गई उस आकृति की पहचान करें जिसे प्रश्नवाचक चिह्न (?) के स्थान पर रखने पर श्रृंखला तार्किक रूप से पूर्ण हो जाएगी।

(1) 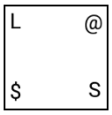

(2) 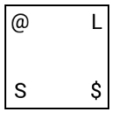

(3) 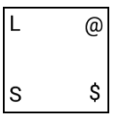 ✔

(4) 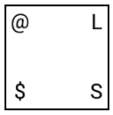

Q.32 What should come in place of '?' in the given series?
32 41 50 59 68 ?
दी गई श्रृंखला में '?' के स्थान पर क्या आना चाहिए?
32 41 50 59 68 ?

(1) 81
(2) 88
(3) **77** ✔
(4) 85

Q.33 If 1 is subtracted from each odd digit and 2 is added to each even digit in the number 475217937561, then what will be the sum of the digits that are second from the left and third from the right of the new number thus formed?
यदि संख्या 475217937561 में प्रत्येक विषम अंक में से 1 घटाया जाए और प्रत्येक सम अंक में 2 जोड़ा जाए, तो इस प्रकार बनी नई संख्या में बाएँ से दूसरे और दाएँ से तीसरे अंकों का योग क्या होगा?

(1) 12
(2) 9
(3) **10** ✔
(4) 14

Q.34 What will come in place of the question mark (?) in the following equation, if '+' and '–' are interchanged and '×' and '÷' are interchanged?
101 ÷ 18 + 1515 × 15 − 19 = ?
यदि '+' और '–' को आपस में बदल दिया जाए तथा '×' और '÷' को आपस में बदल दिया जाए, तो निम्नलिखित समीकरण में प्रश्नवाचक चिह्न (?) के स्थान पर क्या आएगा?
101 ÷ 18 + 1515 × 15 − 19 = ?

(1) 1727
(2) **1736** ✔
(3) 1741
(4) 1744

Q.35 What should come in place of the question mark (?) in the given series?
18, 24, 36, 54, 78 , ?
दी गई श्रृंखला में प्रश्नवाचक चिह्न (?) के स्थान पर क्या आना चाहिए?
18, 24, 36, 54, 78 , ?

(1) 109
(2) **108** ✔
(3) 106
(4) 107

QuickSarkari.com | WhatsApp Channel | Telegram: t.me/quick_sarkari

Q.36 Based on the English alphabetical order, three of the following four letter-cluster pairs are alike in a certain way and thus form a group. Which is the letter-cluster pair that DOES NOT belong to that group? (Note: The odd one out is not based on the number of consonants/vowels or their position in the letter-cluster.)

अंग्रेजी वर्णमाला क्रम के आधार पर, निम्नलिखित चार अक्षर-समूह युग्मों में से तीन किसी निश्चित प्रकार से एक समान हैं और इस प्रकार एक समूह बनाते हैं। वह कौन-सा अक्षर-समूह युग्म है जो उस समूह से संबंधित नहीं है?
(ध्यान दें: असंगत युग्म, व्यंजनों/स्वरों की संख्या या अक्षर-समूह में उनके स्थान पर आधारित नहीं है।)

(1) UO - RL
(2) NH - KE
(3) JD - GB ✔
(4) PJ - MG

Q.37 Which of the following letter-number clusters will replace the question mark (?) in the given series to make it logically complete?
MQ17, LP25, KO33, JN41, ?

निम्नलिखित में से कौन-सा अक्षर-संख्या समूह दी गई श्रृंखला में प्रश्नवाचक चिह्न (?) का स्थान लेकर उसे तार्किक रूप से पूर्ण करेगा?
MQ17, LP25, KO33, JN41, ?

(1) IM49 ✔
(2) IN49
(3) IM48
(4) IN48

Q.38 3 is related to 33 following a certain logic. Following the same logic, 5 is related to 55. To which of the following is 10 related, following the same logic?
(NOTE : Operations should be performed on the whole numbers, without breaking down the numbers into their constituent digits. E.g. 13 – Operations on 13 such as adding /subtracting /multiplying etc. to 13 can be performed. Breaking down 13 into 1 and 3 and then performing mathematical operations on 1 and 3 is not allowed.)

3 एक निश्चित तर्क का अनुसरण करते हुए 33 से संबंधित है। उसी तर्क का अनुसरण करते हुए, 5, 55 से संबंधित है। उसी तर्क का अनुसरण करते हुए, 10 निम्नलिखित में से किससे संबंधित है?
(ध्यान दें: संक्रियाएँ पूर्ण संख्याओं पर की जानी चाहिए, संख्याओं को उनके घटक अंकों में तोड़े बिना। उदाहरण के लिए 13 – 13 पर संक्रियाएँ जैसे 13 में जोड़ना/घटाना/गुणा करना आदि किया जा सकता है। 13 को 1 और 3 में तोड़कर फिर 1 और 3 पर गणितीय संक्रियाएँ करने की अनुमति नहीं है।)

(1) 110 ✔
(2) 120
(3) 100
(4) 130

Q.39 Each of the digits in the number 4135728 is arranged in the descending order from left to right. The position(s) of how many digits will remain unchanged as compared to that in the original number?

संख्या 4135728 के प्रत्येक अंक को बाएँ से दाएँ अवरोही क्रम में व्यवस्थित किया जाता है। मूल संख्या की तुलना में कितने अंकों की स्थिति अपरिवर्तित रहेगी?

(1) Two / दो
(2) None / कोई नहीं
(3) One / एक ✔
(4) Three / तीन

Q.40 Select the pair that follows the same pattern as that followed by the two pairs given below. Both pairs follow the same pattern.
CGN : AEP MLR : KJT
उस युग्म का चयन करें जो उसी पैटर्न का अनुसरण करता है जिसका अनुसरण नीचे दिए गए दो युग्म करते हैं। दोनों युग्म एक ही पैटर्न का अनुसरण करते हैं।
CGN : AEP MLR : KJT

(1) DHU : BFW ✔
(2) PHQ : NFT
(3) NLT : KJV
(4) INK : GPM

General Awareness

Q.41 Who emerged as the leader of the peasants during the 1783 Rangpur uprising against British revenue practices?
ब्रिटिश राजस्व प्रथाओं के विरुद्ध 1783 के रंगपुर विद्रोह के दौरान किसानों के नेता के रूप में कौन उभरा?

(1) Dirjinarain / दिर्जीनारायण ✔
(2) Sidhu and Kanu / सिद्धू और कान्हू
(3) Musa Shah / मूसा शाह
(4) Bhawani Pathak / भवानी पाठक

Q.42 Weathering is correctly defined as which of the following processes occurring in situ without movement of material?
अपक्षय को सही रूप में निम्नलिखित में से किस प्रक्रिया के रूप में परिभाषित किया गया है, जो पदार्थ के स्थानांतरण के बिना स्वस्थाने घटित होती है?

(1) Downslope movement of soil and rock material under the influence of gravitational force / गुरुत्वाकर्षण बल के प्रभाव में मृदा और शैल पदार्थ का ढलान की ओर संचलन
(2) Deposition of sediments by river systems within low-lying basins and floodplain regions / निचले बेसिनों और बाढ़ के मैदानी क्षेत्रों में नदी तंत्रों द्वारा अवसादों का निक्षेपण
(3) Disintegration and decay of rocks through physical, chemical, and biological processes in place / भौतिक, रासायनिक और जैविक प्रक्रियाओं द्वारा चट्टानों का उसी स्थान पर विघटन और अपघटन ✔
(4) Transportation of rock particles by running water, wind currents, or moving glacial ice / बहते जल, पवन धाराओं या गतिशील हिमनदी बर्फ द्वारा शैल कणों का परिवहन

Q.43 Which of the following rivers does NOT form a delta at its mouth?
निम्नलिखित में से कौन-सी नदी अपने मुहाने पर डेल्टा नहीं बनाती है?

(1) Narmada / नर्मदा ✔
(2) Mahanadi / महानदी
(3) Krishna / कृष्णा
(4) Ganga / गंगा

Q.44 How many total islands are there in the Lakshadweep archipelago?
लक्षद्वीप द्वीपसमूह में कुल कितने द्वीप हैं?

(1) 36 ✔
(2) 20
(3) 12
(4) 10

Q.45 Which of the following channels separates the island of Minicoy from the main Lakshadweep archipelago?

निम्नलिखित में से कौन-सा चैनल मिनिकॉय द्वीप को मुख्य लक्षद्वीप द्वीपसमूह से अलग करता है?

(1) Ten Degree Channel / दस डिग्री चैनल

(2) Nine Degree Channel / नौ डिग्री चैनल ✔

(3) Six Degree Channel / छह डिग्री चैनल

(4) Eight Degree Channel / आठ डिग्री चैनल

Q.46 Which of the following is NOT a part of the tertiary activities in India?

निम्नलिखित में से कौन-सा भारत में तृतीयक क्रियाकलापों का भाग नहीं है?

(1) Tourism / पर्यटन

(2) Banking / बैंकिंग

(3) Transportation / परिवहन

(4) Agriculture / कृषि ✔

Q.47 The Right to Education was made a Fundamental Right by which Constitutional Amendment?

शिक्षा के अधिकार को किस संविधान संशोधन द्वारा मौलिक अधिकार बनाया गया था?

(1) 61st Amendment / 61वाँ संशोधन

(2) 74th Amendment / 74वाँ संशोधन

(3) 86th Amendment / 86वाँ संशोधन ✔

(4) 42nd Amendment / 42वाँ संशोधन

Q.48 Togalu Gombeyatta of Karnataka is which type of a puppet form of the following?

कर्नाटक का तोगलु गोम्बेयाटा निम्नलिखित में से किस प्रकार का कठपुतली रूप है?

(1) Glove Puppets / दस्ताना कठपुतली

(2) Rod Puppets / छड़ कठपुतली

(3) String Puppets / धागा कठपुतली

(4) Shadow Puppets / छाया कठपुतली ✔

Q.49 Which Article of the Indian Constitution deals with the status of the Union Council of Ministers?

भारतीय संविधान का कौन-सा अनुच्छेद केंद्रीय मंत्रिपरिषद की स्थिति से संबंधित है?

(1) Article 74 / अनुच्छेद 74 ✔

(2) Article 73 / अनुच्छेद 73

(3) Article 78 / अनुच्छेद 78

(4) Article 75 / अनुच्छेद 75

Q.50 Which of the following government schemes aims to provide affordable air travel to common citizens in smaller cities?

निम्नलिखित में से किस सरकारी योजना का उद्देश्य छोटे शहरों में आम नागरिकों को किफायती हवाई यात्रा उपलब्ध कराना है?

(1) UDAN (Ude Desh ka Aam Nagrik) / उड़ान (उड़े देश का आम नागरिक) ✔

(2) Sagarmala / सागरमाला

(3) Make in India / मेक इन इंडिया

(4) RCS (Regional Connectivity Scheme) / RCS (क्षेत्रीय संपर्क योजना)

Q.51 When was the Right to Information Act passed?

सूचना का अधिकार अधिनियम कब पारित किया गया था?

(1) 2002

(2) 2007

(3) **2005 ✔**

(4) 2010

Q.52 The Doctrine of Lapse affected:

व्यपगत के सिद्धांत ने किसे प्रभावित किया:

(1) Military reforms / सैन्य सुधार

(2) **Princely states / रियासतें ✔**

(3) Revenue systems / राजस्व प्रणालियाँ

(4) Trade policies / व्यापार नीतियाँ

Q.53 The National Legal Services Authority (NALSA), which was constituted to provide free Legal Services to the weaker sections of the society and to organize Lok Adalats for amicable settlement of disputes, is housed at which court of Delhi?

राष्ट्रीय विधिक सेवा प्राधिकरण (NALSA), जिसका गठन समाज के कमजोर वर्गों को निःशुल्क विधिक सेवाएँ प्रदान करने और विवादों के सौहार्दपूर्ण निपटारे के लिए लोक अदालतों का आयोजन करने हेतु किया गया था, दिल्ली के किस न्यायालय में स्थित है?

(1) Dwarka Court / द्वारका न्यायालय

(2) Tis Hazari Court / तीस हजारी न्यायालय

(3) Supreme Court of India / भारत का सर्वोच्च न्यायालय

(4) **Delhi High Court / दिल्ली उच्च न्यायालय ✔**

Q.54 Who was the founder of the Gwalior Gharana, a style of Hindustani classical music?

हिंदुस्तानी शास्त्रीय संगीत की एक शैली, ग्वालियर घराने के संस्थापक कौन थे?

(1) Kader Baksh / कादर बख्श

(2) **Nathan Pir Bakhsh / नत्थन पीर बख्श ✔**

(3) Hassu Khan / हस्सू खान

(4) Haddu Khan / हद्दू खान

Q.55 Who serves as the head of the National Disaster Management Authority (NDMA) of India?

भारत के राष्ट्रीय आपदा प्रबंधन प्राधिकरण (NDMA) के प्रमुख कौन होते हैं?

(1) Minister of Home Affairs of India / भारत के गृह मंत्री

(2) Chief of Defence Staff / चीफ ऑफ डिफेंस स्टाफ

(3) President of India / भारत के राष्ट्रपति

(4) **Prime Minister of India / भारत के प्रधानमंत्री ✔**

Q.56 The 1st Rampa Rebellion of 1879 was primarily associated with which region?

1879 का 1ला रम्पा विद्रोह मुख्य रूप से किस क्षेत्र से संबंधित था?

(1) Orissa / उड़ीसा

(2) Bastar / बस्तर

(3) Chhotanagpur / छोटानागपुर

(4) **Vizagapatnam / विजागापट्टनम ✔**

Q.57 Bommalattam is a traditional puppet theatre from which Indian state?
बोम्मलाट्टम किस भारतीय राज्य का पारंपरिक कठपुतली रंगमंच है?

(1) Odisha / ओडिशा
(2) Gujarat / गुजरात
(3) Tamil Nadu / तमिलनाडु ✔
(4) Manipur / मणिपुर

Q.58 Which of the following revolutionary leaders killed A.M.T. Jackson District Magistrate of Nashik?
निम्नलिखित में से किस क्रांतिकारी नेता ने नासिक के जिला मजिस्ट्रेट A.M.T. जैक्सन की हत्या की थी?

(1) Lala Har Dayal / लाला हरदयाल
(2) Madanlal Dhingra / मदनलाल ढींगरा
(3) Anant Laxman Kanhere / अनंत लक्ष्मण कान्हेरे ✔
(4) Bipin Chandra Pal / बिपिन चंद्र पाल

Q.59 Which dynasty was prominent in South India during the early medieval period (800-1200 AD) for its naval power?
प्रारंभिक मध्यकाल (800-1200 ई.) के दौरान दक्षिण भारत में कौन-सा राजवंश अपनी नौसैनिक शक्ति के लिए प्रसिद्ध था?

(1) Cheras / चेर
(2) Pandyas / पांड्य
(3) Cholas / चोल ✔
(4) Pallavas / पल्लव

Q.60 During its early history, the state of Hyderabad faced constant struggle against which of the following powers?
अपने प्रारंभिक इतिहास के दौरान, हैदराबाद राज्य को निम्नलिखित में से किन शक्तियों के विरुद्ध निरंतर संघर्ष करना पड़ा?

(1) The British and the French forces / ब्रिटिश और फ्रांसीसी सेनाएँ
(2) The Mughals and the Rajput clans / मुगल और राजपूत कुल
(3) The Marathas and Telugu warrior chiefs / मराठा और तेलुगु योद्धा सरदार ✔
(4) The Vijayanagara and Chola dynasties / विजयनगर और चोल राजवंश

Q.61 Which organization released the 'World Economic Outlook' in April 2025?
किस संगठन ने अप्रैल 2025 में 'वर्ल्ड इकोनॉमिक आउटलुक' जारी किया?

(1) UN Trade and Development / संयुक्त राष्ट्र व्यापार एवं विकास
(2) International Monetary Fund / अंतर्राष्ट्रीय मुद्रा कोष ✔
(3) Organisation for Economic Co-operation and Development / आर्थिक सहयोग और विकास संगठन
(4) World Bank / विश्व बैंक

Q.62 The “Global Value Chain” concept reflects:
“वैश्विक मूल्य श्रृंखला” की अवधारणा दर्शाती है:

(1) The abandonment of manufacturing in global markets / वैश्विक बाजारों में विनिर्माण का परित्याग
(2) Independent production processes within a single country / एक ही देश के भीतर स्वतंत्र उत्पादन प्रक्रियाएँ
(3) Complete self-sufficiency of nations / राष्ट्रों की पूर्ण आत्मनिर्भरता
(4) International production networks where different stages occur in different countries / अंतर्राष्ट्रीय उत्पादन नेटवर्क, जिनमें विभिन्न चरण अलग-अलग देशों में संपन्न होते हैं ✔

Q.63 Which ministry of government of India conducted the National Achievement Survey (NAS) in 2024?

भारत सरकार के किस मंत्रालय ने 2024 में राष्ट्रीय उपलब्धि सर्वेक्षण (NAS) आयोजित किया?

(1) Ministry of Labour / श्रम मंत्रालय

(2) **Ministry of Education / शिक्षा मंत्रालय ✔**

(3) Ministry of Culture / संस्कृति मंत्रालय

(4) Ministry of External Affairs / विदेश मंत्रालय

Q.64 Which of the following organizations declared 2025 as the 'International Year of Quantum Science and Technology' to raise awareness about quantum science and its applications?

क्वांटम विज्ञान और इसके अनुप्रयोगों के बारे में जागरूकता बढ़ाने के लिए निम्नलिखित में से किस संगठन ने 2025 को 'अंतर्राष्ट्रीय क्वांटम विज्ञान और प्रौद्योगिकी वर्ष' घोषित किया?

(1) International Atomic Energy Agency / अंतर्राष्ट्रीय परमाणु ऊर्जा एजेंसी

(2) World Economic Forum / विश्व आर्थिक मंच

(3) World Energy Council / विश्व ऊर्जा परिषद

(4) **United Nations General Assembly / संयुक्त राष्ट्र महासभा ✔**

Q.65 The services sector saw rapid expansion post 1991 economic reforms. Which of the following sub-sectors grew rapidly due to liberalisation?

1991 के आर्थिक सुधारों के बाद सेवा क्षेत्र का तीव्र विस्तार हुआ। उदारीकरण के कारण निम्नलिखित में से किस उप-क्षेत्र में तीव्र वृद्धि हुई?

(1) **IT and Software / IT और सॉफ्टवेयर ✔**

(2) Agriculture / कृषि

(3) Manufacturing / विनिर्माण

(4) Textiles / वस्त्र

Q.66 Which of the following cellular structures is responsible for the synthesis of proteins in a eukaryotic cell?

यूकैरियोटिक कोशिका में प्रोटीन के संश्लेषण के लिए निम्नलिखित में से कौन-सी कोशिकीय संरचना उत्तरदायी है?

(1) Mitochondrion / माइटोकॉन्ड्रिया

(2) **Ribosome / राइबोसोम ✔**

(3) Smooth endoplasmic reticulim / चिकनी अंतर्द्रव्यी जालिका

(4) Golgi apparatus / गॉल्जी उपकरण

Q.67 Since 1991, the Indian economy has become more resilient to global shocks. Which of the following institutions manages India's monetary policy to control inflation and support growth?

1991 से, भारतीय अर्थव्यवस्था वैश्विक आघातों के प्रति अधिक लचीली हो गई है। निम्नलिखित में से कौन-सी संस्था मुद्रास्फीति को नियंत्रित करने और विकास को समर्थन देने के लिए भारत की मौद्रिक नीति का प्रबंधन करती है?

(1) Planning Commission / योजना आयोग

(2) Election Commission / निर्वाचन आयोग

(3) **Reserve Bank of India / भारतीय रिज़र्व बैंक ✔**

(4) Ministry of External Affairs / विदेश मंत्रालय

Q.68 Which of the following acids has the highest acid dissociation constant (Ka)?

निम्नलिखित में से किस अम्ल का अम्ल वियोजन स्थिरांक (Ka) सबसे अधिक है?

(1) HCl ✔

(2) CH_3COOH

(3) HF

(4) HNO_2

Q.69 In April 2025, India signed a significant defense agreement with France. What was the primary focus of this agreement?

अप्रैल 2025 में, भारत ने फ्रांस के साथ एक महत्वपूर्ण रक्षा समझौते पर हस्ताक्षर किए। इस समझौते का मुख्य केंद्र क्या था?

(1) Joint development of nuclear submarines / परमाणु पनडुब्बियों का संयुक्त विकास

(2) Establishment of a joint space research center / एक संयुक्त अंतरिक्ष अनुसंधान केंद्र की स्थापना

(3) Purchase of 26 Rafale fighter jets for the Indian Navy / भारतीय नौसेना के लिए 26 राफेल लड़ाकू विमानों की खरीद ✔

(4) Deployment of French troops in the Indo-Pacific region / हिंद-प्रशांत क्षेत्र में फ्रांसीसी सैनिकों की तैनाती

Q.70 The Doppler Effect explains the change in the _____.

डॉप्लर प्रभाव _____ में परिवर्तन की व्याख्या करता है।

(1) temperature of sound waves / ध्वनि तरंगों के तापमान

(2) pitch of sound due to relative motion / आपेक्षिक गति के कारण ध्वनि के तारत्व ✔

(3) loudness of sound due to pressure / दाब के कारण ध्वनि की प्रबलता

(4) speed of sound due to humidity / आर्द्रता के कारण ध्वनि की चाल

Q.71 Which significant initiative did the Defence Research and Development Organisation (DRDO) undertake in 2025 to advance India's indigenous quantum defence capabilities?

भारत की स्वदेशी क्वांटम रक्षा क्षमताओं को आगे बढ़ाने के लिए रक्षा अनुसंधान एवं विकास संगठन (DRDO) ने 2025 में कौन-सी महत्वपूर्ण पहल की?

(1) Establishment of the Quantum Technology Research Centre / क्वांटम प्रौद्योगिकी अनुसंधान केंद्र की स्थापना ✔

(2) Launch of the Kaveri Jet Engine / कावेरी जेट इंजन का प्रक्षेपण

(3) Inauguration of the Naval Anti-Ship Missile Program / नौसेना एंटी-शिप मिसाइल कार्यक्रम का उद्घाटन

(4) Development of the Multi- Influence Ground Mine / मल्टी-इन्फ्लुएंस ग्राउंड माइन का विकास

Q.72 Who among the following has become the fastest batter to reach 14,000 runs in One Day Internationals in February 2025?

फरवरी 2025 में निम्नलिखित में से कौन एकदिवसीय अंतर्राष्ट्रीय मैचों में 14,000 रन तक पहुँचने वाला सबसे तेज़ बल्लेबाज़ बना?

(1) Virat Kohli / विराट कोहली ✔

(2) K L Rahul / के एल राहुल

(3) Suryakumar Yadav / सूर्यकुमार यादव

(4) Rohit Sharma / रोहित शर्मा

Q.73 As per the Ministry of External Affairs, the India–Russia Annual Summit held in December 2025 recorded Russia's explicit support for India's permanent membership in which international body?
विदेश मंत्रालय के अनुसार, दिसंबर 2025 में आयोजित भारत–रूस वार्षिक शिखर सम्मेलन में किस अंतर्राष्ट्रीय निकाय में भारत की स्थायी सदस्यता के लिए रूस के स्पष्ट समर्थन को दर्ज किया गया?

(1) International Court Justice / अंतर्राष्ट्रीय न्यायालय
(2) International Monetary Fund / अंतर्राष्ट्रीय मुद्रा कोष
(3) United Nations Security Council / संयुक्त राष्ट्र सुरक्षा परिषद ✔
(4) World Trade Organization / विश्व व्यापार संगठन

Q.74 In December 2024, the European Union reached a revised trade agreement with which South American trade bloc?
दिसंबर 2024 में, यूरोपीय संघ ने किस दक्षिण अमेरिकी व्यापार गुट के साथ एक संशोधित व्यापार समझौता किया?

(1) Pacific Alliance / पैसिफिक अलायंस
(2) Andean Community / एंडियन समुदाय
(3) Mercosur / मर्कोसुर ✔
(4) Caricom / कैरिकॉम

Q.75 How many gold medals did India win at the Archery World Cup Stage 2, held in Shanghai, China, in May 2025?
मई 2025 में शंघाई, चीन में आयोजित तीरंदाजी विश्व कप स्टेज 2 में भारत ने कितने स्वर्ण पदक जीते?

(1) 01
(2) 04
(3) 03
(4) 02 ✔

Q.76 What was the focus of the Bio-RIDE scheme approved in September 2024?
सितंबर 2024 में स्वीकृत Bio-RIDE योजना का मुख्य केंद्र क्या था?

(1) Vaccine development / टीका विकास
(2) Biomanufacturing and Biofoundry / बायोमैन्युफैक्चरिंग और बायोफाउंड्री ✔
(3) Clinical trials / नैदानिक परीक्षण
(4) Genetic engineering / आनुवंशिक इंजीनियरिंग

Q.77 Monetary policy in India is implemented by _____.
भारत में मौद्रिक नीति _____ द्वारा लागू की जाती है।

(1) Ministry of Finance / वित्त मंत्रालय
(2) SEBI
(3) Reserve Bank of India / भारतीय रिज़र्व बैंक ✔
(4) State Bank of India / भारतीय स्टेट बैंक

Q.78 Which state launched the cleanliness movement called Vruthi 2025?
किस राज्य ने वृत्ति 2025 नामक स्वच्छता अभियान शुरू किया?

(1) Tamil Nadu / तमिलनाडु
(2) Andhra Pradesh / आंध्र प्रदेश
(3) Kerala / केरल ✔
(4) Karnataka / कर्नाटक

Q.79 In which year was Nanaji Deshmukh Sarvottam Panchayat Satat Vikas Puraskar revamped and launched to align with the United Nations Sustainable Development Goals (SDGs)?

नानाजी देशमुख सर्वोत्तम पंचायत सतत विकास पुरस्कार को संयुक्त राष्ट्र के सतत विकास लक्ष्यों (SDGs) के अनुरूप बनाने के लिए किस वर्ष नया रूप देकर शुरू किया गया था?

(1) 2016

(2) 2014

(3) **2022 ✔**

(4) 2018

Q.80 The recent (as of March 2026) surge in global oil prices was largely linked to tensions in the Middle East affecting which strategic maritime chokepoint for global oil transport?

हाल ही में (मार्च 2026 तक) वैश्विक तेल कीमतों में आई तेज़ उछाल मुख्य रूप से मध्य पूर्व में तनाव से जुड़ी थी, जो वैश्विक तेल परिवहन के किस रणनीतिक समुद्री चोकपॉइंट को प्रभावित कर रहा था?

(1) Suez Canal / स्वेज नहर

(2) **Strait of Hormuz / होर्मुज जलडमरूमध्य ✔**

(3) Strait of Malacca / मलक्का जलडमरूमध्य

(4) Panama Canal / पनामा नहर

Arithmetical and Numerical Ability

Q.81 What is the sum of the digits of 24% of the number obtained by multiplying the HCF and LCM of 120 and 180?

120 और 180 के HCF और LCM को गुणा करने से प्राप्त संख्या के 24% के अंकों का योग क्या है?

(1) **18 ✔**

(2) 12

(3) 15

(4) 21

Q.82 Amit invested equal amounts at both simple interest and compound interest, compounded annually, for 2 years at the same rate of 4% per annum. At the end of the period, he observed a difference of ₹50 between the two interests earned. What was the principal amount (in ₹) invested in each case?

अमित ने 2 वर्षों के लिए 4% वार्षिक की समान दर पर साधारण ब्याज और वार्षिक रूप से संयोजित चक्रवृद्धि ब्याज, दोनों पर समान राशि निवेश की। अवधि के अंत में, उसने अर्जित दोनों ब्याजों के बीच ₹50 का अंतर देखा।

प्रत्येक स्थिति में निवेश की गई मूलधन राशि (₹ में) कितनी थी?

(1) 31600

(2) 30500

(3) 30350

(4) **31250 ✔**

Q.83 The average of the squares of the first 100 natural numbers is:

प्रथम 100 प्राकृत संख्याओं के वर्गों का औसत है:

(1) 3384.5

(2) 3382.5

(3) 3385.5

(4) **3383.5 ✔**

Q.84 A shopkeeper buys 100 calculators at ₹200 each. He marks each calculator at ₹250 and gives a discount of 10% on the marked price. Find his profit or loss percentage.

एक दुकानदार ₹200 प्रति कैलकुलेटर की दर से 100 कैलकुलेटर खरीदता है। वह प्रत्येक कैलकुलेटर पर ₹250 मूल्य अंकित करता है और अंकित मूल्य पर 10% की छूट देता है। उसका लाभ या हानि प्रतिशत ज्ञात कीजिए।

(1) 12.5% profit / 12.5% लाभ ✔

(2) 15% loss / 15% हानि

(3) 12.5% loss / 12.5% हानि

(4) 15% profit / 15% लाभ

Q.85 Ashish invests a sum of ₹6600 and Arun invests a sum of ₹9800 at the same rate of simple interest per annum. If, at the end of 3 years, Arun gets ₹840 more interest than Ashish, then find the rate of interest per annum (in percentage).

आशीष ₹6600 की राशि और अरुण ₹9800 की राशि साधारण ब्याज की समान वार्षिक दर पर निवेश करते हैं। यदि 3 वर्ष के अंत में अरुण को आशीष से ₹840 अधिक ब्याज मिलता है, तो वार्षिक ब्याज दर (प्रतिशत में) ज्ञात कीजिए।

(1) 8.75 ✔

(2) 10.75

(3) 7.75

(4) 6.75

Q.86 Mahesh deposited a certain sum of money at 7% rate of interest per annum, compounded annually. At the end of 2 years, Mahesh received a total amount of ₹45,796. What was the sum of money deposited by Mahesh?

महेश ने वार्षिक रूप से संयोजित 7% वार्षिक ब्याज दर पर एक निश्चित धनराशि जमा की। 2 वर्ष के अंत में, महेश को कुल ₹45,796 की राशि प्राप्त हुई। महेश द्वारा जमा की गई धनराशि कितनी थी?

(1) ₹39,676

(2) ₹39,700

(3) ₹40,347

(4) ₹40,000 ✔

Q.87 The average of 6.5, 10.9, 19.7 and a is 12. The value of a is:

6.5, 10.9, 19.7 और a का औसत 12 है। a का मान है:

(1) 11.9

(2) 12.9

(3) 10.9 ✔

(4) 9.9

Q.88 Simplify: (2/8) × (24/10) + (8/5 − 8)

सरल कीजिए: (2/8) × (24/10) + (8/5 − 8)

(1) −27/5

(2) −29/5 ✔

(3) −31/5

(4) −23/5

Q.89 Two years ago, the average age of A, B and C was 69 years. Two years from now, the average age of A and C will be 76 years. What will be the age (in years) of B 9 years from now?

अब से दो वर्ष पहले, A, B और C की औसत आयु 69 वर्ष थी। अब से 2 वर्ष बाद, A और C की औसत आयु 76 वर्ष होगी। अब से 9 वर्ष बाद, B की आयु (वर्ष में) कितनी होगी?

(1) 76

(2) 77

(3) 70

(4) 74 ✔

Q.90 The number 721483 is divisible by which of the following?

संख्या 721483 निम्नलिखित में से किससे विभाज्य है?

(1) 11

(2) 3

(3) 13

(4) 7 ✔

Q.91 The respective ratio of monthly income of P to that of Q is 5:7 and P's savings is 14 2/7% more than Q's savings. If the sum of monthly incomes of P and Q is ₹60,000 and expenditure of Q is ₹21,000; find out the expenditure of P.

P की मासिक आय और Q की मासिक आय का क्रमशः अनुपात 5:7 है और P की बचत, Q की बचत से 14 2/7% अधिक है। यदि P और Q की मासिक आय का योग ₹60,000 है और Q का व्यय ₹21,000 है; तो P का व्यय ज्ञात कीजिए।

(1) ₹8,000

(2) ₹10,000

(3) ₹9,000 ✔

(4) ₹7,000

Q.92 If the cost price of 36 pens is equals to the selling price of 30 pens. Find the profit percent.

यदि 36 पेनों का क्रय मूल्य 30 पेनों के विक्रय मूल्य के बराबर है। लाभ प्रतिशत ज्ञात कीजिए।

(1) 20% ✔

(2) 12%

(3) 15%

(4) 18%

Q.93 Simplify: √(998 + √(651 + √(595 + √(866 + √1156))))

सरल कीजिए: √(998 + √(651 + √(595 + √(866 + √1156))))

(1) 34

(2) 32 ✔

(3) 28

(4) 30

Q.94 The monthly earnings (in ₹) of a shop are shown in the graph below.

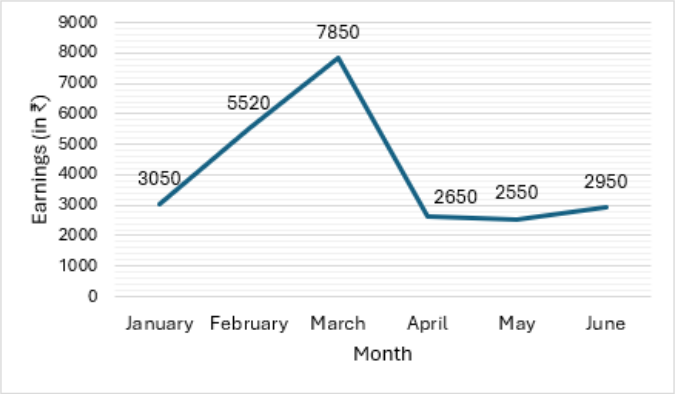

What is the average monthly earnings (in ₹) of the shop during these six months?

एक दुकान की मासिक आय (₹ में) नीचे दिए गए ग्राफ में दर्शाई गई है।

इन छह महीनों के दौरान दुकान की औसत मासिक आय (₹ में) कितनी है?

(1) 4,035

(2) 4,065

(3) **4,095** ✔

(4) 4,125

Q.95 Study the table and answer the question that follows.

The table given below represents the number of cars sold by different companies in the year 2021 and 2022. Company Cars sold in 2021 Cars sold in 2022 Audi 1580 1789 BMW 1865 2088 Toyota 1958 2058 Maruti 1920 2036 Renault 1642 2036 Calculate the difference of average of cars sold in the year 2021 and 2022.

तालिका का अध्ययन करें और नीचे दिए गए प्रश्न का उत्तर दें।

नीचे दी गई तालिका वर्ष 2021 और 2022 में विभिन्न कंपनियों द्वारा बेची गई कारों की संख्या को दर्शाती है।

कंपनी 2021 में बेची गई कारें 2022 में बेची गई कारेंऑडी 1580 1789 BMW 1865 2088 टोयोटा 1958 2058 मारुति 1920 2036 रेनो 1642 2036 वर्ष 2021 और 2022 में बेची गई कारों के औसत का अंतर ज्ञात कीजिए।

(1) **208.4** ✔

(2) 189.4

(3) 200.4

(4) 168.4

Q.96 The adult population of a village is 50,000. In an election 8% of them did not vote and 40% of the people who voted were females. Find the number of males who voted.

एक गाँव की वयस्क जनसंख्या 50,000 है। एक चुनाव में उनमें से 8% ने मतदान नहीं किया और मतदान करने वाले लोगों में से 40% महिलाएँ थीं। मतदान करने वाले पुरुषों की संख्या ज्ञात कीजिए।

(1) 28,850

(2) **27,600** ✔

(3) 27,865

(4) 26,960

Q.97 Four cards marked with prime numbers are placed upside down on a table. Cards have been arranged in ascending order of numbers. If product of numbers on first 3 cards is 385, and the product of the numbers on the last three boxes is 1001, then what is the number on the first card?

अभाज्य संख्याओं से अंकित चार कार्ड एक मेज़ पर उल्टे रखे गए हैं। कार्डों को संख्याओं के आरोही क्रम में व्यवस्थित किया गया है। यदि पहले 3 कार्डों पर अंकित संख्याओं का गुणनफल 385 है, और अंतिम तीन बक्सों पर अंकित संख्याओं का गुणनफल 1001 है, तो पहले कार्ड पर कौन-सी संख्या है?

(1) 3
(2) 2
(3) 4
(4) 5 ✔

Q.98 Simplify: 23 - [3 - {8 - (3 + 5)}]

सरल कीजिए: 23 - [3 - {8 - (3 + 5)}]

(1) 24
(2) 27
(3) 17
(4) 20 ✔

Q.99 The number 944343 is divisible by which of the following?

संख्या 944343 निम्नलिखित में से किससे विभाज्य है?

(1) 11
(2) 3 ✔
(3) 7
(4) 13

Q.100 The H.C.F. and L.C.M. of two numbers are 11 and 330, respectively. One number is 110. Find the other number.

दो संख्याओं के H.C.F. और L.C.M. क्रमशः 11 और 330 हैं। एक संख्या 110 है। दूसरी संख्या ज्ञात कीजिए।

(1) 44
(2) 55
(3) 121
(4) 33 ✔

Q.101 Find the fourth proportional to 56, 84 and 108.

56, 84 और 108 का चतुर्थानुपाती ज्ञात कीजिए।

(1) 178
(2) 128
(3) 162 ✔
(4) 142

Q.102 A boat's speed is 10 km/hr and the stream's speed is 2 km/hr. What is the upstream speed?

एक नाव की चाल 10 km/hr है और धारा की चाल 2 km/hr है। धारा के प्रतिकूल चाल क्या है?

(1) 12 km/hr
(2) 6 km/hr
(3) 10 km/hr
(4) 8 km/hr ✔

Q.103 Two spheres have a total surface area of 60π cm^2. If the first sphere has eight times the volume of the second sphere, find the difference between their surface areas. (Round off your answer to two places of decimal and use use π = 3.14).

दो गोलों का कुल पृष्ठीय क्षेत्रफल 60π cm2 है। यदि पहले गोले का आयतन दूसरे गोले के आयतन का आठ गुना है, तो उनके पृष्ठीय क्षेत्रफलों का अंतर ज्ञात कीजिए। (अपने उत्तर को दशमलव के दो स्थानों तक पूर्णांकित करें और π = 3.14 लें)।

(1) 167.02 cm^2

(2) **113.04 cm^2** ✔

(3) 149.07 cm^2

(4) 135.08 cm^2

Q.104 The volume of a wall 9 times as high as its breadth and one-third as long as its height is 185193 m^3. What is the breadth (in m) of the wall?

एक दीवार, जिसकी ऊँचाई उसकी चौड़ाई की 9 गुनी है और लंबाई उसकी ऊँचाई की एक-तिहाई है, का आयतन 185193 m^3 है। दीवार की चौड़ाई (m में) कितनी है?

(1) 17

(2) **19** ✔

(3) 15

(4) 21

Q.105 A shopkeeper fixes the marked price of an item 160% above its cost price. What percentage of discount on marked price should be allowed to gain 30%?

एक दुकानदार किसी वस्तु का अंकित मूल्य उसके क्रय मूल्य से 160% अधिक निर्धारित करता है। 30% का लाभ प्राप्त करने के लिए अंकित मूल्य पर कितने प्रतिशत की छूट दी जानी चाहिए?

(1) 48%

(2) 49%

(3) 47%

(4) **50%** ✔

Q.106 A, B, and C together can complete a job in 12 days. A and B can do it in 15 days, and B and C can do it in 18 days. Find how many days C alone will take to finish the work?

A, B और C मिलकर एक कार्य को 12 दिनों में पूरा कर सकते हैं। A और B इसे 15 दिनों में कर सकते हैं, और B और C इसे 18 दिनों में कर सकते हैं। ज्ञात कीजिए कि C अकेले कार्य को पूरा करने में कितने दिन लेगा?

(1) 40

(2) **60** ✔

(3) 24

(4) 56

Q.107 Two taps can fill a cistern in 2 hours and 42 hours, respectively. A third tap can empty it in 42 hours. How long (in hours) will it take to fill the empty cistern, if all of them are opened together?

दो नल एक टंकी को क्रमशः 2 घंटे और 42 घंटे में भर सकते हैं। एक तीसरा नल इसे 42 घंटे में खाली कर सकता है। यदि सभी नलों को एक साथ खोल दिया जाए, तो खाली टंकी को भरने में कितना समय (घंटों में) लगेगा?

(1) 5

(2) **2** ✔

(3) 3

(4) 4

Q.108 The curved surface area of a cone is 550 cm^2. If the radius is 7 cm and the slant height is (10 + x) cm, then x is _____.
(Use π = 22/7)

एक शंकु का वक्र पृष्ठीय क्षेत्रफल 550 cm^2 है। यदि त्रिज्या 7 cm और तिर्यक ऊँचाई (10 + x) cm है, तो x _____ है।
(π = 22/7 का प्रयोग करें)

(1) 10
(2) 5
(3) 15 ✔
(4) 20

Q.109 Train A leaves station M at 7:00 AM and reaches station N at 4:00 PM on the same day. Train B leaves station N at 9:00 AM and reaches station M at 2:00 PM on the same day. Find the time when Trains A and B meet.

ट्रेन A स्टेशन M से 7:00 AM पर चलती है और उसी दिन 4:00 PM पर स्टेशन N पहुँचती है। ट्रेन B स्टेशन N से 9:00 AM पर चलती है और उसी दिन 2:00 PM पर स्टेशन M पहुँचती है। वह समय ज्ञात कीजिए जब ट्रेन A और B एक-दूसरे से मिलती हैं।

(1) 11:50 AM
(2) 12:10 PM
(3) 11:30 AM ✔
(4) 12:30 PM

Q.110 An electric item has a marked price of ₹45,000. If a trade discount of 5% is given, what is the selling price (in ₹)?

एक विद्युत वस्तु का अंकित मूल्य ₹45,000 है। यदि 5% की व्यापारिक छूट दी जाती है, तो विक्रय मूल्य (₹ में) क्या है?

(1) 43,000
(2) 42,500
(3) 42,000
(4) 42,750 ✔

Q.111 A solid metallic spherical ball is melted and cast into a solid cone and a solid cylinder. If the radius and height of both the cone and the cylinder are 30 cm and 35 cm, respectively, what is the diameter (in cm) of the original solid metallic sphere, assuming no wastage in the process? (Round your answer to the nearest integer.)

एक ठोस धात्विक गोलाकार गेंद को पिघलाकर एक ठोस शंकु और एक ठोस बेलन में ढाला जाता है। यदि शंकु और बेलन दोनों की त्रिज्या और ऊँचाई क्रमशः 30 cm और 35 cm है, तो प्रक्रिया में कोई अपव्यय न मानते हुए, मूल ठोस धात्विक गोले का व्यास (cm में) कितना है? (अपने उत्तर को निकटतम पूर्णांक तक पूर्णांकित करें।)

(1) 63 ✔
(2) 68
(3) 66
(4) 60

Q.112 Two teams, Team Alpha and Team Beta, received a sponsorship amount in the ratio of 3:8. If Team Beta received ₹1,15,000 more than Team Alpha, how much did Team Alpha receive?

दो टीमों, टीम अल्फा और टीम बीटा, को 3:8 के अनुपात में प्रायोजन राशि प्राप्त हुई। यदि टीम बीटा को टीम अल्फा से ₹1,15,000 अधिक प्राप्त हुए, तो टीम अल्फा को कितनी राशि प्राप्त हुई?

(1) ₹70,000

(2) ₹68,000

(3) ₹71,000

(4) ₹69,000 ✔

Q.113 What is the fourth proportional of 3√6, 5√6 and 3√8?

3√6, 5√6 और 3√8 का चतुर्थानुपाती क्या है?

(1) 10√2 ✔

(2) 5√3

(3) 5√2

(4) 10√3

Q.114 The volume of a cuboid is 4800 cm^3. Its length and breadth are 20 cm and 12 cm, respectively. Find its height.

एक घनाभ का आयतन 4800 cm^3 है। इसकी लंबाई और चौड़ाई क्रमशः 20 cm और 12 cm हैं। इसकी ऊँचाई ज्ञात कीजिए।

(1) 22 cm

(2) 20 cm ✔

(3) 18 cm

(4) 24 cm

Q.115 A cosmetic product is available at a discount of 75%. If the shopkeeper charges ₹1,876, what is its marked price?

एक कॉस्मेटिक उत्पाद 75% की छूट पर उपलब्ध है। यदि दुकानदार ₹1,876 लेता है, तो इसका अंकित मूल्य क्या है?

(1) ₹7,504 ✔

(2) ₹6,994

(3) ₹7,496

(4) ₹6,886

Q.116 A factory built in the shape of a cuboid except for its roof had its dimensions given as 350 m × 30 m × 30 m. The structure is then closed on the top with a semi-cylindrical structure to exactly cover the open top of the cuboidal structure. The volume (in m^3) of the semi-cylindrical structure forming the roof is:
(Take π = 22/7)

छत को छोड़कर घनाभ के आकार में बने एक कारखाने की विमाएँ 350 m × 30 m × 30 m दी गई थीं। फिर इस संरचना को ऊपर से एक अर्ध-बेलनाकार संरचना द्वारा बंद किया जाता है ताकि घनाभाकार संरचना का खुला शीर्ष ठीक-ठीक ढक जाए।

छत बनाने वाली अर्ध-बेलनाकार संरचना का आयतन (m^3 में) है:
(π = 22/7 लीजिए)

(1) 1,23,650

(2) 1,23,640

(3) 1,23,790

(4) 1,23,750 ✔

Q.117 The area (in cm^2) of an equilateral triangle of side 18 cm is:

18 cm भुजा वाले एक समबाहु त्रिभुज का क्षेत्रफल (cm^2 में) है:

(1) 79√3

(2) 81√3 ✔

(3) 83√3

(4) 86√3

Q.118 The curved surface area of a cylinder having radius 5 cm and height 42 cm is:

5 cm त्रिज्या और 42 cm ऊँचाई वाले एक बेलन का वक्र पृष्ठीय क्षेत्रफल है:

(1) 444 π cm^2

(2) 462 π cm^2

(3) 420 π cm^2 ✔

(4) 506 π cm^2

Q.119 A tap fills a cistern in 18 hours. Another tap empties the full tank in 36 hours. How long (in hours) will it take to fill two- third of the tank, if the tank is empty initially and both the taps are opened together?

एक नल किसी टंकी को 18 घंटे में भरता है। दूसरा नल भरी हुई टंकी को 36 घंटे में खाली कर देता है। यदि टंकी प्रारंभ में खाली है और दोनों नल एक साथ खोल दिए जाते हैं, तो टंकी का दो-तिहाई भाग भरने में कितना समय (घंटों में) लगेगा?

(1) 96

(2) 48

(3) 24 ✔

(4) 72

Q.120 The ratio of the present ages of a man and his wife is 9 : 7. After 12 years from now, this ratio will be 6 : 5. If at the time of marriage, the ratio was 7 : 5, then what is the sum of their ages when they got married?

एक पुरुष और उसकी पत्नी की वर्तमान आयु का अनुपात 9 : 7 है। अब से 12 वर्ष बाद, यह अनुपात 6 : 5 हो जाएगा। यदि विवाह के समय यह अनुपात 7 : 5 था, तो विवाह के समय उनकी आयु का योग क्या था?

(1) 48 years / 48 वर्ष ✔

(2) 52 years / 52 वर्ष

(3) 44 years / 44 वर्ष

(4) 42 years / 42 वर्ष

English Language and Comprehension

Q.121 Select the correct option to complete the following sentence.

Maria always claimed her friend to be ___ although there were plenty of instances where she was very magnanimous.

(1) maudlin

(2) morose

(3) obsequious

(4) impecunious ✔

Q.122 In the given question, a statement is divided into four segments. Rearrange them to form a coherent sentence.
(A) rather than local considerations
(B) generating dissatisfaction
(C) although consultation processes were extensive
(D) final decisions reflected central priorities

(1) CBDA
(2) CDAB ✔
(3) CADB
(4) CDBA

Q.123 Which of the following sentences uses the past perfect continuous tense correctly?

(1) They were working on the project for five hours before the power went out.
(2) They had worked on the project for five hours before the power went out.
(3) They have been working on the project for five hours before the power went out.
(4) They had been working on the project for five hours before the power went out. ✔

Q.124 Select the most appropriate option to fill in the blank.
A speech made at a funeral is known as a/an _____.

(1) sermon
(2) eulogy ✔
(3) dialogue
(4) monologue

Q.125 In the given question, a statement is divided into four segments. Rearrange them to form a coherent sentence.
(A) Since resource allocation lacked transparency,
(B) interdepartmental tensions escalated,
(C) undermining collaboration,
(D) across projects

(1) ACBD
(2) BCAD
(3) BACD
(4) ABCD ✔

Q.126 In the given question, a statement divided into different segments is given. The first segment is fixed. Rearrange the other segments to form a coherent statement.
The empire declined slowly, P) compounded by external invasions Q) over successive generations R) burdened by administrative overreach S) and mounting economic pressures

(1) RPSQ
(2) PSQR
(3) QRSP ✔
(4) SQRP

Q.127 In the following sentence, replace the highlighted phrase with the most appropriate one-word substitution.
The diplomat's statement was deliberately vague so as to avoid commitment.

(1) Ambivalent
(2) Circumspect
(3) **Equivocal ✔**
(4) Taciturn

Q.128 Complete the sentence by choosing the correct option:
Tomorrow evening, we ..... a movie at the cinema.

(1) will watching
(2) will be watched
(3) will have watched
(4) **will watch ✔**

Q.129 Select the word that means the same as the underlined group of words in the given sentence.
The student showed a strong desire to learn and ask questions, going far beyond the syllabus.

(1) Indifference
(2) **Inquisitiveness ✔**
(3) Apathy
(4) Lethargy

Q.130 Fill in the blank.
Rahul is not _____ honorable man.

(1) the
(2) **an ✔**
(3) No article required
(4) a

Q.131 Select the most appropriate option to fill in the blank.
We haven't finished the report _____.

(1) **yet ✔**
(2) still
(3) now
(4) already

Q.132 Complete the sentence with correct adjective.
The movie was criticized for its _____ costumes, as the characters were wearing 18th-century attire in a setting that was supposed to take place in the 1920s.

(1) lugubrious
(2) parched
(3) **anachronistic ✔**
(4) insipid

Quick Sarkari

Q.133 Select the correct direct form of the given sentence.
They said that they were going to the cinema.

(1) They said, "We are going to the cinema." ✔
(2) They said, "They are going to the cinema."
(3) They said, "We were going to the cinema."
(4) They said, "We go to the cinema."

Q.134 Select the grammatically correct sentence:

(1) He used to play cricket when he was a child. ✔
(2) He had use to play cricket when he was a child.
(3) He is used to playing cricket when he was a child.
(4) He did used to play cricket when he was a child.

Q.135 Select the most appropriate option to fill in the blank.
She said, "_____ to attend the event."

(1) He won't able
(2) She won't be able
(3) I won't be able ✔
(4) They will not able

Q.136 Fill in the blank.
She reached home after _____ hour.

(1) a
(2) No article required
(3) an ✔
(4) the

Q.137 In the given question, a statement divided into different segments is given. The first segment is fixed. Rearrange the other segments to form a coherent statement.
The novel resists easy classification, P) blending elements of history and fiction Q) that typically define genre boundaries R) while simultaneously subverting narrative conventions S) in contemporary literary criticism

(1) PRSQ
(2) QPRS
(3) PRQS ✔
(4) RQPS

Q.138 Select the most appropriate option which can be used to fill the given blank.
A person who travels from place to place without a fixed home is known as a _____

(1) Nomad ✔
(2) Migrant
(3) Foreigner
(4) Hermit

QuickSarkari.com | WhatsApp Channel | Telegram: t.me/quick_sarkari

Q.139 Choose the correct word to complete the sentence.
He _____ of us whether we were going away that day.

(1) said
(2) **inquired ✔**
(3) told
(4) complained

Q.140 Fill in the blank with the most appropriate option.
The teacher spoke _____ during the lecture, ensuring that every student understood the complex topic.

(1) fluently
(2) **slowly ✔**
(3) rapidly
(4) confidently

Q.141 Choose the most appropriate antonym of the highlighted word.
The professor's perspicacious observations regarding the socioeconomic shifts were buried deep within the lengthy appendix.

(1) Astute
(2) **Fatuous ✔**
(3) Discriminating
(4) Sagacious

Q.142 Select the option that rectifies the underlined spelling error in the given sentence.
Forthwith a change came over the waters and the sarenity became less brilliant but more profound.

(1) saranity
(2) **serenity ✔**
(3) cerenity
(4) caranity

Q.143 Find the closest ANTONYM of the word highlighted in bold.
Despite the relatively easy trek and the presence of a guide, the young trekkers were undaunted in their quest to reach the peak.

(1) resolute
(2) fearless
(3) persistent
(4) **deterred ✔**

Q.144 Select the idiom that conveys the same meaning as the underlined segment in the given sentence.
After years of hard work, she experienced good luck when she received the job offer of her dreams.

(1) **Fortune smiled on someone ✔**
(2) Honesty is the best policy
(3) Good things come to those who wait
(4) If it ain't broke, don't fix it

Quick Sarkari

Q.145 Replace the given word segment with the correct proverb.
When someone believes that other people are in a better situation, although they may not be

(1) Make hay while the sun shines
(2) A rolling stone gathers no moss
(3) Don't count your chickens before they hatch
(4) **The grass is always greener on the other side ✔**

Q.146 A statement has been given with highlighted text. You are required to replace the highlighted text with the correct idiom given in the options.
I had to improvise quickly when my presentation stopped working.

(1) **think on my feet ✔**
(2) bite the bullet
(3) cry over spilled milk
(4) blow off steam

Q.147 Choose the word-segment that can correctly replace the underlined words.
The new government promised to bring to book all the corrupt officials.

(1) **punish the wrong actions of ✔**
(2) offer a second chance to
(3) provide legal advice to
(4) promote to higher posts

Q.148 Select the most appropriate antonym of the word in bold.
The frenetic pace of the city was overwhelming for the newcomers.

(1) **quiet ✔**
(2) admirable
(3) compact
(4) trivial

Q.149 In the following sentence, identify the ANTONYM of the highlighted word.
The scholar was criticized for his obdurate refusal to revise the flawed hypothesis.

(1) **Pliant ✔**
(2) Deliberate
(3) Methodical
(4) Circumspect

Q.150 Select the INCORRECTLY spelt word.

(1) Discern
(2) Irrelevant
(3) Perceive
(4) **Abcence ✔**

Q.151 How is the passage mainly organised?

(1) Narrative sequence ending with dramatic resolution
(2) Debate presented through opposing viewpoints
(3) Historical argument followed by statistical evaluation
(4) **Explanation supported through psychological examples ✔**

QuickSarkari.com | WhatsApp Channel | Telegram: t.me/quick_sarkari

Q.152 What does the word “resilience” most nearly imply in the passage?

(1) Tendency toward constant self-analysis

(2) Preference for avoiding emotional attachment

(3) Habit of suppressing personal expression

(4) Capacity to recover from difficulty ✔

Q.153 What experience do researchers associate with reduced productivity anxiety?

(1) Receiving frequent praise for achievements

(2) Participating regularly in structured activities

(3) Being quietly acknowledged during childhood ✔

(4) Competing successfully in academic settings

Q.154 What is the central theme of the passage?

(1) Childhood success depends upon material privilege

(2) Emotional stability develops through ordinary experiences ✔

(3) Structured discipline creates stronger adult relationships

(4) Personal ambition guarantees psychological resilience

Q.155 What can be inferred about adults who constantly seek external validation?

(1) They generally preferred isolated routines

(2) They likely lacked emotional reassurance ✔

(3) They frequently rejected childhood guidance

(4) They usually avoided difficult relationships

Q.156 What best summarises the passage?

(1) Researchers rejected stem- cell therapies for autoimmune disorders

(2) Diabetes treatment now depends entirely upon organ replacement

(3) Scientists developed a gentler transplant-based diabetes treatment ✔

(4) Laboratory studies disproved immune-system adaptation mechanisms

---

Q.157 Which title best reflects the analytical focus of the passage?

(1) Ethical Questions Surrounding Animal Laboratory Testing

(2) Artificial Intelligence in Surgical Decision Making

(3) Declining Availability of Donor Organ Networks

(4) Toward Safer Transplants for Type One Diabetes ✔

Q.158 What drug was included in the immune-conditioning process?

(1) Metformin combined with synthetic insulin injections

(2) Baricitinib used alongside antibodies and radiation ✔

(3) Penicillin administered through intravenous infusion therapy

(4) Aspirin provided during stem- cell transplantation procedures

---

Q.159 Which central theme is primarily explored in the passage?

(1) Economic inequality within international healthcare systems

(2) Scientific innovation addressing limitations in disease treatment ✔

(3) Political regulation restricting biomedical experimentation

(4) Ethical criticism surrounding experimental animal research

---

Q.160 What does the passage imply about earlier islet transplantation methods?

(1) They produced immediate organ rejection in all patients

(2) **They carried substantial risks due to immune suppression ✔**

(3) They relied exclusively on genetically engineered tissues

(4) They functioned effectively without immune modification procedures

Hindi Language and Comprehension

Q.161 कारक के आधार पर वाक्य पूर्ण कीजिए।
पेड़-पौधे पर्यावरण _____ लाभदायक होते हैं।

(1) **के लिए ✔**

(2) से

(3) का

(4) पर

Q.162 निम्नलिखित विकल्पों में से कौन-सा वाक्य क्रम सही है?

(1) कला जीवन में है डालती प्राण।

(2) है डालती प्राण कला जीवन में।

(3) डालती है प्राण कला जीवन में।

(4) **कला जीवन में प्राण डालती है। ✔**

Q.163 "घर की मुर्गी दाल बराबर" लोकोक्ति का सही अर्थ है –

(1) **अपने पास की चीज़ की कदर न करना ✔**

(2) असंभव काम करना

(3) जबरदस्ती साथ रहना

(4) अनहोनी से बचना

Q.164 उपयुक्त क्रिया-विशेषण का चयनकर दिए गए वाक्य को पूर्ण कीजिए।
'रेशमा बच्चों को .. .. प्यार करती है।'

(1) सटासट

(2) मुख्यकर

(3) **दिल से ✔**

(4) पटपट

Q.165 खिलाड़ी ने मेहनत करनी शुरू कर दी। वाक्य में ..... क्रिया है।
दिए गए विकल्प में से क्रिया के उचित भेद को चुन कर वाक्य पूर्ण करें -

(1) अकर्मक क्रिया

(2) पूर्वकालिक क्रिया

(3) **संयुक्त क्रिया ✔**

(4) प्रेरणार्थक क्रिया

Q.166 'बहुत कष्ट करने पर जो प्राप्त हो'- निम्नलिखित वाक्यांश के लिए उपयुक्त एक शब्द लिखिए-

(1) कष्टसाध्य

(2) **दुर्लभ ✔**

(3) दुष्कर

(4) क्लिष्ट

Q.167 उपयुक्त क्रिया का चयनकर निम्नलिखित वाक्य को पूर्ण कीजिए।
'सरिता साबुन से .....है'।

(1) खाती
(2) जाती
(3) सोती
(4) **नहाती ✔**

Q.168 निम्नांकित विकल्पों में से उचित कारक चिह्न का चयन करके वाक्य पूर्ण करें- आज भारत को वीरों .....जरूरत है।

(1) को
(2) का
(3) **की ✔**
(4) के

Q.169 राम _____ कलम _____ पत्र लिखा। रिक्त स्थानों की पूर्ति उचित कारक से करें।

(1) **ने, से ✔**
(2) में, से
(3) को, ने
(4) से, पर

Q.170 निम्नलिखित वाक्यांश के लिए सही सार्थक शब्द का चयन करें।
जो व्यक्ति दूसरों के दोष देखने में ही सदा प्रवृत्त रहता हो

(1) **छिद्रान्वेषी ✔**
(2) कुटिल
(3) दुर्वाक्
(4) निंदक

Q.171 निम्नलिखित विकल्पों में से उचित कारक चिन्ह वाले विकल्प का चयन कर वाक्य पूर्ण करें – न आँखो ने देखा न कानों ..... सुना।

(1) पर
(2) द्वारा
(3) को
(4) **ने ✔**

Q.172 'काली के ब्याह को सौ जोखिम'- लोकोक्ति का अर्थ क्या है?

(1) धोखेबाजी हर बार नहीं चल सकती है
(2) प्रयत्न करते रहना चाहिए, सफलता जरूर मिलेगी
(3) **एक दोष होने पर अनेक दोष निकाल देते हैं ✔**
(4) धनवान चिंतित रहता है, गरीब निश्चिंत

Q.173 'जो शोक करने योग्य न हो' उपर्युक्त वाक्यांश के लिए एक सार्थक शब्द चुनें –

(1) अवर्ण्य
(2) अल्पज्ञ
(3) **अशोच्य ✔**
(4) शोचनीय

Q.174 किसान _____ से खेतों में काम कर रहे हैं। निम्न में से वाक्य के रिक्त स्थान की पूर्ति किस क्रिया विशेषण से नहीं हो सकती।

(1) खुशी
(2) मेहनत
(3) **सरल ✔**
(4) ईमानदारी

Q.175 निम्नलिखित वाक्य को उपयुक्त प्रेरणार्थक क्रिया द्वारा पूरा कीजिए-- मैंने उससे खाना _____ था

(1) बनाया
(2) **बनवाया ✔**
(3) सजवाया
(4) पकाया

Q.176 क्रिया विशेषण पद का प्रयोग करके वाक्य पूर्ण करें।
जंगल में _____ अंधकार था।

(1) **सर्वत्र ✔**
(2) हल्की
(3) घनोत्तर
(4) तेजी

Q.177 उचित क्रिया शब्द से वाक्य पूर्ण करें- उसे पांडेय जी की आत्मकथा _____।

(1) **लिखनी पड़ी ✔**
(2) लिखना पड़ेगी
(3) लिखनी पड़ेगा
(4) लिखना पड़ा

Q.178 'किसी पर विजय पाने की इच्छा रखने वाला' उपर्युक्त वाक्यांश के लिए एक सार्थक शब्द चुनें-

(1) छिद्रान्वेषी
(2) जिज्ञासा
(3) **जिगीषु ✔**
(4) ज्ञानपिपासु

Q.179 निम्नलिखित वाक्य में रेखांकित शब्द का पर्यायवाची चुनें- बंगाल में अखबारों और पुस्तकों के माध्यम से अंग्रेजों के अन्याय के विरुद्ध आवाज उठाने की पहल की गई।

(1) दुर्गति
(2) **अनीति ✔**
(3) विनती
(4) विसंगति

Q.180 "मुझे ... पानी चाहिए, बहुत प्यास लगी है।" रिक्त स्थान की पूर्ति उचित विशेषण से करें।

(1) काम
(2) **थोड़ा ✔**
(3) मिट
(4) पार

QuickSarkari.com | WhatsApp Channel | Telegram: t.me/quick_sarkari

Q.181 'बात बनाना' मुहावरे का क्या अर्थ होता है?

(1) चिरौरी करना

(2) खुशामद करना

(3) **बहाना करना ✔**

(4) शिकायत करना

Q.182 निम्नलिखित वाक्यों में किस वाक्य में वर्तनी की अशुद्धि है?

(1) **नवीकरणीय ऊर्जा स्रोत भविष्थ में मानव सभ्यता को सुरक्षित रखने का महत्वपूर्ण साधन होंगे। ✔**

(2) परिवार का स्नेह व्यक्ति को कठिनाइयों से लड़ने की शक्ति और आत्मबल देता है।

(3) चित्रकला कलाकार की कल्पना को जीवंत आकार देकर दर्शक को नया दृष्टिकोण देती है।

(4) साहित्य समाज का दर्पण है, जो युगीन समस्याओं और मानवीय भावनाओं को सामने लाता है।

Q.183 निम्नलिखित में से किस लोकोक्ति का अर्थ संगत नहीं है?

(1) **कौआ चले हंस की चाल - दखल देने वाला ✔**

(2) चट मंगनी पट ब्याह - तुरंत कार्य संपन्न करना

(3) घड़ी में तोला घड़ी में माशा - अस्थिर मनोवृत्ति

(4) खरबूजे को देखकर खरबूजा रंग बदलता है - देखा देखी परिवर्तन आना

Q.184 दिए गए विकल्पों में से शुद्ध वाक्य का विकल्प चुनें -

(1) गरीबी सभ्यता का अभिषाप है।

(2) गरीबी सभ्यता का अभीशाप है।

(3) गरीबी सभ्यता का अभीषाप है।

(4) **गरीबी सभ्यता का अभिशाप है। ✔**

Q.185 निम्नलिखित मुहावरे का अर्थ बताएं - 'लंगड़े की लकड़ी होना'

(1) बाधा डालना

(2) **एक मात्र सहारा ✔**

(3) चल देना

(4) भयवश काम करना

Q.186 'घर आये मेहमान बहू कंडों को निकली' लोकोक्ति का सही अर्थ होगा -

(1) **जब किसी कार्य के करने का समय आ जाए तब उसका साधन जुटाना ✔**

(2) घर पर आया बैरी भी स्वागत की अपेक्षा रखता है

(3) किसी वस्तु की अधिकता होने पर उसका दुरुपयोग कोई नहीं करता

(4) जो घर आ जाए वही मेहमान होता है

Q.187 दिए गए वाक्यों में से शुद्ध वाक्य का चयन कीजिए।

(1) मुझे पियास लगी है।

(2) **मैं इन बातों का अभ्यस्त हूँ। ✔**

(3) मंत्री जी ने कविगोष्ठी का उद्घाटन किया।

(4) वह आया था प्रंतु रुका नहीं ।

Q.188 'चंडूखाने की गप मारना' मुहावरे का अर्थ क्या है?

(1) यथायोग्य व्यवहार ना करना

(2) रणभूमि में मारा जाना

(3) गुस्सा पचा जाना

(4) **पागलों की सी झूठी-मूठी बात ✔**

Q.189 निम्नलिखित लोकोक्ति के अर्थ को बताएं - 'जिसका काम उसी को साजै'

(1) कम बोलने और कम खर्च करने से फायदा होता है

(2) जिसका जो काम है वही उसे अच्छी प्रकार से कर सकता है ✔

(3) जब हर एक का कथन भिन्न हो

(4) जान बूझ का किसी अप्रिय बात को ग्रहण नहीं किया जा सकता

Q.190 नीचे दिए गए वाक्यों में से 'इहलोक' का विलोम वाक्य चुनिए।

(1) मुझे इधर -उधर की बातें मत करो सीधे मुद्दे पर आओ।

(2) किसी का दिल दुखाकर अपना परलोक क्यों बिगाड़ रहे हो। ✔

(3) समय का सही उपयोग करो ।

(4) मुझे कुछ अनिष्ट होने की आशंका है।

Q.191 निम्नलिखित में से उपर्युक्त गद्यांश के लिए सबसे उपयुक्त शीर्षक का चयन कीजिए।

(1) उन्नीसवीं शताब्दी और वैज्ञानिक आविष्कार

(2) राष्ट्रीयता का उदय और उसका महत्त्व ✔

(3) यूरोप में व्यापार और राजसत्ता

(4) प्रजातंत्र और राजतंत्र का विकास

Q.192 उपर्युक्त गद्यांश का केन्द्रीय विषय क्या है?

(1) राष्ट्रीयता की उत्पत्ति और उसके महत्त्व का प्रसार ✔

(2) राष्ट्रीयता के पतन का वर्णन करना

(3) उन्नीसवीं शताब्दी में विज्ञान और उद्योगों का विकास

(4) यूरोप का संपूर्ण विश्व पर वर्चस्व का प्रसार

Q.193 उपर्युक्त गद्यांश के अनुसार प्रजातंत्र के रोब बढ़ने और राजतंत्र के शिथिल होने के परिणामस्वरूप किसका जन्म हुआ?

(1) यूरोप का वर्चस्व

(2) राष्ट्रीयता ✔

(3) रूपवाद

(4) सामंतवाद

Q.194 उपर्युक्त गद्यांश में आए शब्द 'शिथिल' का पर्यायवाची इनमें से कौन सा शब्द नहीं है?

(1) निस्तेज

(2) मंद

(3) निष्क्रिय

(4) शिशिर ✔

Q.195 उपर्युक्त गद्यांश में आए शब्द 'प्रधान' का विलोम शब्द बताइए।

(1) मुख्य

(2) गौण ✔

(3) संपूर्ण

(4) विशेष

Q.196 कहानियाँ बच्चों को किससे मुक्त करती हैं?

(1) पढ़ाई से

(2) समाज से

(3) जीवन के बँधे-बँधाए ढर्रे से ✔

(4) परिवार से

Q.197 प्रस्तुत गद्यांश के अनुसार बाल साहित्य का वर्तमान स्वरूप कब सामने आया?

(1) अठारहवीं सदी में

(2) उन्नीसवीं सदी में

(3) इक्कीसवीं सदी में

(4) बीसवीं सदी में ✔

Q.198 प्रस्तुत गद्यांश का वास्तविक जीवन से संबंध किससे है?

(1) बच्चों के खेल से

(2) शिक्षा व्यवस्था से

(3) बच्चों के मानसिक और कल्पनाशील विकास से ✔

(4) केवल मनोरंजन उद्योग से

Q.199 प्रस्तुत गद्यांश का केंद्रीय विषय क्या है?

(1) बीसवीं सदी का साहित्य

(2) आधुनिक बच्चों की समस्याएँ

(3) बाल साहित्य में दादी-नानी की कहानियों का महत्व ✔

(4) ग्रिम बंधुओं का जीवन परिचय

Q.200 प्रस्तुत गद्यांश के लिए सबसे उपयुक्त शीर्षक कौन-सा है?

(1) बाल साहित्य का उद्गम और दादी-नानी की कहानियाँ ✔

(2) आधुनिक मनोरंजन

(3) आधुनिक तकनीक

(4) ऐतिहासिक घटनाएँ

Answer Key / उत्तर कुंजी

1 1	**2** 4	**3** 3	**4** 1	**5** 1	**6** 2	**7** 2	**8** 4	**9** 4	**10** 3	**11** 3	**12** 4	**13** 1	**14** 1	**15** 3
16 2	**17** 3	**18** 4	**19** 1	**20** 2	**21** 2	**22** 1	**23** 4	**24** 1	**25** 3	**26** 2	**27** 1	**28** 3	**29** 3	**30** 4
31 3	**32** 3	**33** 3	**34** 2	**35** 2	**36** 3	**37** 1	**38** 1	**39** 3	**40** 1	**41** 1	**42** 3	**43** 1	**44** 1	**45** 2
46 4	**47** 3	**48** 4	**49** 1	**50** 1	**51** 3	**52** 2	**53** 4	**54** 2	**55** 4	**56** 4	**57** 3	**58** 3	**59** 3	**60** 3
61 2	**62** 4	**63** 2	**64** 4	**65** 1	**66** 2	**67** 3	**68** 1	**69** 3	**70** 2	**71** 1	**72** 1	**73** 3	**74** 3	**75** 4
76 2	**77** 3	**78** 3	**79** 3	**80** 2	**81** 1	**82** 4	**83** 4	**84** 1	**85** 1	**86** 4	**87** 3	**88** 2	**89** 4	**90** 4
91 3	**92** 1	**93** 2	**94** 3	**95** 1	**96** 2	**97** 4	**98** 4	**99** 2	**100** 4	**101** 3	**102** 4	**103** 2	**104** 2	**105** 4
106 2	**107** 2	**108** 3	**109** 3	**110** 4	**111** 1	**112** 4	**113** 1	**114** 2	**115** 1	**116** 4	**117** 2	**118** 3	**119** 3	**120** 1
121 4	**122** 2	**123** 4	**124** 2	**125** 4	**126** 3	**127** 3	**128** 4	**129** 2	**130** 2	**131** 1	**132** 3	**133** 1	**134** 1	**135** 3
136 3	**137** 3	**138** 1	**139** 2	**140** 2	**141** 2	**142** 2	**143** 4	**144** 1	**145** 4	**146** 1	**147** 1	**148** 1	**149** 1	**150** 4
151 4	**152** 4	**153** 3	**154** 2	**155** 2	**156** 3	**157** 4	**158** 2	**159** 2	**160** 2	**161** 1	**162** 4	**163** 1	**164** 3	**165** 3

166 2	**167** 4	**168** 3	**169** 1	**170** 1	**171** 4	**172** 3	**173** 3	**174** 3	**175** 2	**176** 1	**177** 1	**178** 3	**179** 2	**180** 2
181 3	**182** 1	**183** 1	**184** 4	**185** 2	**186** 1	**187** 2	**188** 4	**189** 2	**190** 2	**191** 2	**192** 1	**193** 2	**194** 4	**195** 2
196 3	**197** 4	**198** 3	**199** 3	**200** 1										

QuickSarkari

Quick Sarkari

Thank you for studying with QuickSarkari!

Get the latest Sarkari Naukri notifications, admit cards, results, answer keys and free previous-year papers first - follow us on WhatsApp and Telegram.

Visit www.quicksarkari.com

Join our WhatsApp Channel

https://whatsapp.com/channel/0029VaxxbrREquiPoXTWM229

Join our Telegram Channel

https://t.me/quick_sarkari

Share this PDF with your friends preparing for DSSSB exams.