DSSSB PREVIOUS YEAR PAPER WITH ANSWER KEY

DSSSB Assistant Superintendent

5 July 2026 · Shift 1

डीएसएसएसबी सहायक अधीक्षक – 5 जुलाई 2026, शिफ्ट 1 का प्रश्न पत्र, उत्तर कुंजी सहित

199	120 min	1 / −0.25	EN + HI
Questions / प्रश्न	Duration / समय	Marks per Q / अंक	Language / भाषा

Sections: General Intelligence and Reasoning Ability, General Awareness, Arithmetical and Numerical Ability, English Language and Comprehension, Hindi Language and Comprehension

INSIDE THIS PDF / इस PDF में

Question Paper in English + Hindi with Answer Key (correct option marked in green) + answer table Page 2–42
प्रश्न पत्र अंग्रेज़ी + हिंदी में, उत्तर कुंजी सहित (सही विकल्प हरे रंग में) + उत्तर तालिका

HOW TO USE THIS PAPER / इस पेपर का उपयोग कैसे करें

1. Attempt the paper first as a timed online mock test (link below).
   पहले नीचे दिए लिंक से इसे टाइमर के साथ ऑनलाइन मॉक टेस्ट के रूप में हल करें।
2. Check your score, section-wise analysis and solutions online.
   ऑनलाइन अपना स्कोर, खंड-वार विश्लेषण और हल देखें।
3. Use this PDF for revision. Correct answers are shown in green.
   दोहराने के लिए इस PDF का उपयोग करें। सही उत्तर हरे रंग में दिए गए हैं।

Attempt this paper as a FREE online mock test

इस पेपर को फ्री ऑनलाइन मॉक टेस्ट के रूप में हल करें – टाइमर, स्कोर और हल के साथ

https://quicksarkari.com/dsssb-assistant-superintendent-05-july-2026-shift-1-mock-test/

All DSSSB Assistant Superintendent papers and mock tests: **quicksarkari.com/dsssb-mock-test/#assistant-superintendent**

Join WhatsApp Channel | Join Telegram Channel

DSSSB Assistant Superintendent – Question Paper (English + Hindi)

DSSSB सहायक अधीक्षक – प्रश्न पत्र (अंग्रेज़ी + हिंदी)

Exam held on 5 July 2026, Shift 1 · 199 questions · correct answers marked ✔ in green
परीक्षा तिथि 5 जुलाई 2026, शिफ्ट 1 · 199 प्रश्न · सही उत्तर हरे रंग में ✔ से चिह्नित

> The official paper for this shift was in English. The Hindi version of each question is a translation prepared by QuickSarkari; the language-section questions are shown as asked.
> इस शिफ्ट का आधिकारिक प्रश्न पत्र अंग्रेज़ी में था। प्रत्येक प्रश्न का हिंदी संस्करण QuickSarkari द्वारा तैयार किया गया अनुवाद है; भाषा खंड के प्रश्न मूल रूप में दिए गए हैं।

General Intelligence and Reasoning Ability

Q.1 Which of the following letter-clusters should replace # and % so that the pattern and relationship followed between the letter-cluster pair on the left side of :: is the same as that on the right side of :: ?
: NUR :: ELI : %
निम्नलिखित में से कौन-से अक्षर-समूह # और % को प्रतिस्थापित करने चाहिए ताकि :: के बाईं ओर के अक्षर-समूह युग्म के बीच जो पैटर्न और संबंध है, वही :: के दाईं ओर के युग्म के बीच भी हो?
: NUR :: ELI : %

(1) # = RXU , % = EJH
(2) # = PYV , % = DLH
(3) # = QUV , % = FKG
(4) **# = PWT , % = CJG ✔**

Q.2 C, D, E, K, L and M live on six different floors of the same building. The lowermost floor in the building is numbered 1, the floor above it, number 2 and so on till the topmost floor is numbered 6. M lives on the floor numbered 5. L lives on a floor above M. Only C lives below E. D lives on an even numbered floor. How many people live below K?
C, D, E, K, L और M एक ही इमारत की छह अलग-अलग मंजिलों पर रहते हैं। इमारत की सबसे निचली मंजिल की संख्या 1 है, उसके ऊपर वाली मंजिल की संख्या 2 है और इसी प्रकार सबसे ऊपरी मंजिल की संख्या 6 है। M मंजिल संख्या 5 पर रहता है। L, M से ऊपर की किसी मंजिल पर रहता है। केवल C, E से नीचे रहता है। D एक सम संख्या वाली मंजिल पर रहता है। K से नीचे कितने व्यक्ति रहते हैं?

(1) One / एक
(2) Four / चार
(3) **Two / दो ✔**
(4) Three / तीन

Q.3 In a certain code language, A+ B means 'A is the sister of B'
A – B means 'A is the brother of B'
A x B means 'A is the mother of B'
A ÷ B means 'A is the father of B'
Based on the above, how is M related to J if 'N ÷ W + M – O + J'?
एक निश्चित कूट भाषा में, A+ B का अर्थ है 'A, B की बहन है'
A – B का अर्थ है 'A, B का भाई है' A x B का अर्थ है 'A, B की माता है' A ÷ B का अर्थ है 'A, B का पिता है' उपर्युक्त के आधार पर, यदि 'N ÷ W + M – O + J' है, तो M का J से क्या संबंध है?

(1) Father / पिता
(2) **Brother / भाई ✔**
(3) Father's father / पिता के पिता
(4) Son / पुत्र

Q.4 Each of C, D, E, F, K, I and L has an exam on a different day of a week starting from Monday and ending on Sunday of the same week.
D has exam on Thursday and E has exam on Saturday. K has exam immediately before F. I has exam on one of the days after C. L has exam immediately after F.
How many people have exam between I and L?

C, D, E, F, K, I और L में से प्रत्येक की परीक्षा एक ही सप्ताह में, सोमवार से शुरू होकर रविवार को समाप्त होने वाले सप्ताह के एक अलग-अलग दिन है।
D की परीक्षा गुरुवार को है और E की परीक्षा शनिवार को है। K की परीक्षा F से ठीक पहले है। I की परीक्षा C के बाद के दिनों में से किसी एक दिन है। L की परीक्षा F के ठीक बाद है।
I और L के बीच कितने व्यक्तियों की परीक्षा है?

(1) Four / चार
(2) One / एक
(3) Two / दो
(4) **Three / तीन ✔**

Q.5 Seven boxes A, B, C, D, E, F and G are kept one over the other but not necessarily in the same order. Only five boxes are kept below D. Only three boxes are kept between C and D. F is kept immediately above A. B is kept below D but above F. G is not the topmost box. How many boxes are kept between G and F?

सात बक्से A, B, C, D, E, F और G एक के ऊपर एक रखे गए हैं, लेकिन जरूरी नहीं कि इसी क्रम में हों। D के नीचे केवल पाँच बक्से रखे गए हैं। C और D के बीच केवल तीन बक्से रखे गए हैं। F को A के ठीक ऊपर रखा गया है। B को D के नीचे लेकिन F के ऊपर रखा गया है।
G सबसे ऊपर वाला बक्सा नहीं है। G और F के बीच कितने बक्से रखे गए हैं?

(1) One / एक
(2) Three / तीन
(3) Four / चार
(4) **Two / दो ✔**

Q.6 Q is the brother of N. L is the daughter of E. N is the wife of E. R is the father of Q. How is L related to R ?

Q, N का भाई है। L, E की पुत्री है। N, E की पत्नी है। R, Q का पिता है। L का R से क्या संबंध है?

(1) Wife's mother / पत्नी की माता
(2) Sister's daughter / बहन की पुत्री
(3) Mother's sister / माता की बहन
(4) **Daughter's daughter / पुत्री की पुत्री ✔**

Q.7 This question is based on the following words.
QFZ JAW NCE YBC If in each of the words, each letter is changed to the preceding letter in the English alphabetical order, how many words thus formed will have no vowel?

यह प्रश्न निम्नलिखित शब्दों पर आधारित है।
QFZ JAW NCE YBC यदि प्रत्येक शब्द के प्रत्येक अक्षर को अंग्रेजी वर्णमाला क्रम में उसके पिछले अक्षर से बदल दिया जाए, तो इस प्रकार बने कितने शब्दों में कोई स्वर नहीं होगा?

(1) Three / तीन
(2) Two / दो
(3) **One / एक ✔**
(4) Four / चार

Q.8 In the following triad, each group of letters is related to the subsequent one following a certain logic. Select from the given options, the one which follows the same logic.
TALE - ALTE - ELAT SHOP - HOSP - POHS

निम्नलिखित त्रिक में, अक्षरों का प्रत्येक समूह एक निश्चित तर्क के अनुसार अगले समूह से संबंधित है। दिए गए विकल्पों में से उस विकल्प का चयन करें जो समान तर्क का अनुसरण करता है।
TALE - ALTE - ELAT SHOP - HOSP - POHS

(1) RAIN - ARIN - NAIR
(2) TOYS - OYTS - SYOT ✔
(3) MOST - OSMT - OSTM
(4) DARK - DRAK - KRAD

Q.9 The position(s) of how many letters will remain unchanged if each of the letters in the word BRIDESMAID is arranged in alphabetical order?

यदि शब्द BRIDESMAID के प्रत्येक अक्षर को वर्णमाला क्रम में व्यवस्थित किया जाए, तो कितने अक्षरों का/के स्थान अपरिवर्तित रहेगा/रहेंगे?

(1) Four / चार
(2) One / एक
(3) Two / दो ✔
(4) Three / तीन

Q.10 In a certain code language, 'FORT' is coded as '4268' and 'TUSK' is coded as '3527'. What is the code for 'T' in the given code language?

एक निश्चित कूट भाषा में, 'FORT' को '4268' के रूप में कूटबद्ध किया जाता है और 'TUSK' को '3527' के रूप में कूटबद्ध किया जाता है। दी गई कूट भाषा में 'T' के लिए क्या कूट है?

(1) 7
(2) 3
(3) 8
(4) 2 ✔

Q.11 Refer to the given number and symbol series and answer the question that follows. Counting to be done from left to right only.
(Left) % 3 4 9 # 8 $ 1 * £ 6 @ 5 7 + 2 & Ω (Right)
How many such symbols are there, each of which is immediately preceded by a number and also immediately followed by another symbol?

दी गई संख्या और प्रतीक श्रृंखला को देखिए और नीचे दिए गए प्रश्न का उत्तर दीजिए। गिनती केवल बाएं से दाएं की जानी है।
(बाएं) % 3 4 9 # 8 $ 1 * £ 6 @ 5 7 + 2 & Ω (दाएं)
ऐसे कितने प्रतीक हैं, जिनमें से प्रत्येक के ठीक पहले एक संख्या है और ठीक बाद एक अन्य प्रतीक है?

(1) 4
(2) 3
(3) 2 ✔
(4) 5

QuickSarkari.com | WhatsApp Channel | Telegram: t.me/quick_sarkari

Q.12 Seven people, X, Y, Z, P, Q, R and S, are sitting in a row, facing the north.
Only two people are sitting to the left of R. Only three people are sitting between R and S. Q is sitting to the immediate left of
X. P is sitting to the immediate right of Z. Z is not an immediate neighbour of R. Y is sitting at one of the positions to the right of Z, but to the left of Q.
Who is sitting third to the left of Y?

सात व्यक्ति, X, Y, Z, P, Q, R और S, उत्तर की ओर मुख करके एक पंक्ति में बैठे हैं।
R के बाईं ओर केवल दो व्यक्ति बैठे हैं। R और S के बीच केवल तीन व्यक्ति बैठे हैं। Q, X के ठीक बाईं ओर बैठा है। P, Z के ठीक दाईं ओर बैठा है।
Z, R का निकटतम पड़ोसी नहीं है। Y, Z के दाईं ओर लेकिन Q के बाईं ओर किसी एक स्थान पर बैठा है।
Y के बाईं ओर से तीसरे स्थान पर कौन बैठा है?

(1) Q
(2) P
(3) S
(4) Z ✔

Q.13 Refer to the following number and symbol series and answer the question that follows. Counting to be done from left to right only.
(Left) 9 8 ^ # 4 % ^ & 8 9 5 $ % @ 1 2 * 3 7 (Right)
How many such symbols are there which are immediately preceded by a number and also immediately followed by a number?

निम्नलिखित संख्या और प्रतीक श्रृंखला को देखिए और नीचे दिए गए प्रश्न का उत्तर दीजिए। गिनती केवल बाएं से दाएं की जानी है।
(बाएं) 9 8 ^ # 4 % ^ & 8 9 5 $ % @ 1 2 * 3 7 (दाएं)
ऐसे कितने प्रतीक हैं जिनके ठीक पहले एक संख्या है और ठीक बाद भी एक संख्या है?

(1) Three / तीन
(2) Two / दो
(3) One / एक ✔
(4) None / कोई नहीं

Q.14 Each of A, B, C, D, E, F and G has an exam on a different day of a week starting from Monday and ending on Sunday of the same week. Only two people have the exam between C and B. Only two people have the exam between D and A. Only two people have the exam between G and A. No one has the exam after G. F has the exam on one of the days before E. B has the exam immediately after E. Who has the exam on Wednesday?

A, B, C, D, E, F और G में से प्रत्येक की परीक्षा एक ही सप्ताह में, सोमवार से शुरू होकर रविवार को समाप्त होने वाले सप्ताह के एक अलग-अलग दिन है। C और B के बीच केवल दो व्यक्तियों की परीक्षा है। D और A के बीच केवल दो व्यक्तियों की परीक्षा है। G और A के बीच केवल दो व्यक्तियों की परीक्षा है। G के बाद किसी की परीक्षा नहीं है। F की परीक्षा E से पहले के दिनों में से किसी एक दिन है। B की परीक्षा E के ठीक बाद है।
बुधवार को किसकी परीक्षा है?

(1) A
(2) D
(3) C ✔
(4) E

Q.15 Select the pair which follows the same pattern as that followed by the two set of pairs given below. Both pairs follow the same pattern.
BIH : ENK TKI : WPL

उस युग्म का चयन करें जो उसी पैटर्न का अनुसरण करता है जिसका अनुसरण नीचे दिए गए दो युग्मों के समुच्चय द्वारा किया गया है। दोनों युग्म समान पैटर्न का अनुसरण करते हैं।
BIH : ENK TKI : WPL

(1) ILD : LQG ✔
(2) QFG : ABD
(3) WXT : ZSV
(4) OPY : SDV

Q.16 This question is based on the following words.
ZIS KLB NEC MAJ If in each of the words, each letter is changed to the next letter in the English alphabetical order, how many words thus formed will have vowel?

यह प्रश्न निम्नलिखित शब्दों पर आधारित है।
ZIS KLB NEC MAJ यदि प्रत्येक शब्द के प्रत्येक अक्षर को अंग्रेजी वर्णमाला क्रम में उसके अगले अक्षर से बदल दिया जाए, तो इस प्रकार बने कितने शब्दों में स्वर होगा?

(1) Four / चार
(2) Two / दो ✔
(3) Three / तीन
(4) One / एक

Q.17 Refer to the following letter and symbol series and answer the question that follows. Counting to be done from left to right only.
(Left) W V R K L \ & ^ O ? & B C Y ? @ X B G (Right)
How many such letters are there each of which is immediately preceded by a symbol and also immediately followed by a symbol?

निम्नलिखित अक्षर और प्रतीक श्रृंखला को देखिए और नीचे दिए गए प्रश्न का उत्तर दीजिए। गिनती केवल बाएं से दाएं की जानी है।
(बाएं) W V R K L \ & ^ O ? & B C Y ? @ X B G (दाएं)
ऐसे कितने अक्षर हैं जिनमें से प्रत्येक के ठीक पहले एक प्रतीक है और ठीक बाद भी एक प्रतीक है?

(1) Two / दो
(2) Three / तीन
(3) One / एक ✔
(4) Four / चार

Q.18 Seven friends G, H, I, J, K, C and D are sitting around a circular table facing the center of the table. Only two people sit between K and G when counted from the right of K. Only three people sit between D and H when counted from the right of
H. G sits to the immediate right of H. C sits to the immediate right of I. Who sits fourth to the right of J?

सात मित्र G, H, I, J, K, C और D एक वृत्ताकार मेज के चारों ओर मेज के केंद्र की ओर मुख करके बैठे हैं। K के दाईं ओर से गिनने पर K और G के बीच केवल दो व्यक्ति बैठे हैं। D और H के बीच केवल तीन व्यक्ति बैठे हैं, जब गिनती H के दाईं ओर से की जाए। G, H के ठीक दाईं ओर बैठा है। C, I के ठीक दाईं ओर बैठा है। J के दाईं ओर चौथे स्थान पर कौन बैठा है?

(1) C ✔
(2) H
(3) G
(4) D

Q.19 This question is based on the five three-digit numbers given below.
(Left) 348 567 952 461 628 (Right)
(Example- 697 – First digit = 6, second digit = 9 and third digit = 7)
If the second digit of the second largest number is added to the third digit of the second smallest number, what will be the result?

यह प्रश्न नीचे दी गई पाँच, तीन-अंकीय संख्याओं पर आधारित है।
(बाएं) 348 567 952 461 628 (दाएं)
(उदाहरण- 697 – प्रथम अंक = 6, द्वितीय अंक = 9 और तृतीय अंक = 7)
यदि दूसरी सबसे बड़ी संख्या के दूसरे अंक को दूसरी सबसे छोटी संख्या के तीसरे अंक में जोड़ दिया जाए तो परिणाम क्या होगा?

(1) 4
(2) 2
(3) 1
(4) 3 ✔

Q.20 In a certain code language, 'CORE' is coded as '0386' and 'REPO' is coded as '8062'.
What is the code for 'P' in the given code language?

एक निश्चित कूट भाषा में, 'CORE' को '0386' के रूप में कूटबद्ध किया जाता है और 'REPO' को '8062' के रूप में कूटबद्ध किया जाता है।
दी गई कूट भाषा में 'P' के लिए क्या कूट है?

(1) 2 ✔
(2) 0
(3) 6
(4) 8

Q.21 If 'A' stands for '+', 'B' stands for '−', 'C' stands for '×' and 'D' stands for '÷', what will come in place of the question mark (?) in the following equation?
72 D 9 A 5 C 4 B 6 = ?

यदि 'A' का अर्थ '+', 'B' का अर्थ '−', 'C' का अर्थ '×' और 'D' का अर्थ '÷' है, तो निम्नलिखित समीकरण में प्रश्न चिह्न (?) के स्थान पर क्या आएगा?
72 D 9 A 5 C 4 B 6 = ?

(1) 24
(2) 23
(3) 22 ✔
(4) 21

Q.22 Select the option figure in which the given figure (X) is embedded as its part (rotation is NOT allowed).

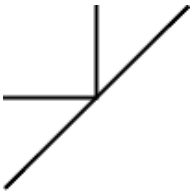

(X)

उस विकल्प आकृति का चयन करें जिसमें दी गई आकृति (X) उसके भाग के रूप में निहित है (घुमाने की अनुमति नहीं है)।

(1) 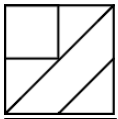 ✔

(2) 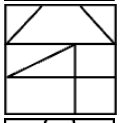

(3) 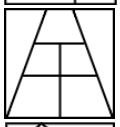

(4) 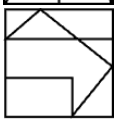

Q.23 Select the letter-cluster from the given options that can replace the question mark (?) in the following series.

NTDP, OVGT, ? , QZMB, RBPF

दिए गए विकल्पों में से उस अक्षर-समूह का चयन करें जो निम्नलिखित श्रृंखला में प्रश्न चिह्न (?) के स्थान पर आ सकता है।

NTDP, OVGT, ? , QZMB, RBPF

(1) PWIV

(2) **PXJX** ✔

(3) PXHV

(4) PWHU

QuickSarkari.com | WhatsApp Channel | Telegram: t.me/quick_sarkari

Q.24 Select the set in which the numbers are related in the same way as are the numbers of the following sets.
(NOTE: Operations should be performed on the whole numbers, without breaking down the numbers into its constituent digits. E.g. 13 – Operations on 13 such as adding / subtracting /multiplying etc. to 13 can be performed. Breaking down 13 into 1 and 3 and then performing mathematical operations on 1 and 3 is not allowed)
(32, 91, 9)
(19, 83, 15)

उस समुच्चय का चयन करें जिसमें संख्याएँ उसी प्रकार संबंधित हैं जिस प्रकार निम्नलिखित समुच्चयों की संख्याएँ संबंधित हैं।
(ध्यान दें: संख्याओं को उनके घटक अंकों में तोड़े बिना, पूर्ण संख्याओं पर संक्रियाएँ की जानी चाहिए। उदाहरण के लिए, 13 – 13 पर संक्रियाएँ जैसे 13 में जोड़ना/घटाना/गुणा करना आदि किया जा सकता है। 13 को 1 और 3 में तोड़ना और फिर 1 और 3 पर गणितीय संक्रियाएँ करने की अनुमति नहीं है।)
(32, 91, 9)
(19, 83, 15)

(1) (13, 58, 12)
(2) (50, 120, 8)
(3) (11, 94, 24) ✔
(4) (19, 97, 21)

Q.25 Select the figure that will come next in the following figure series.

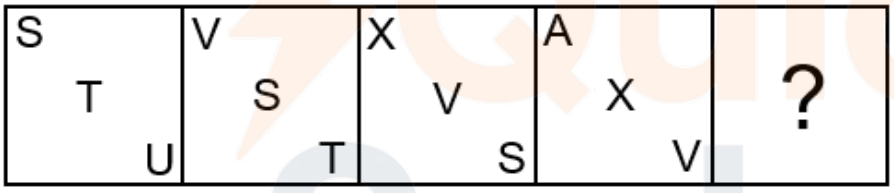

निम्नलिखित आकृति श्रृंखला में आगे आने वाली आकृति का चयन करें।

(1) 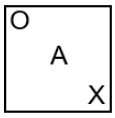 ✔

(2) 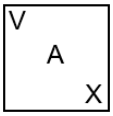

(3) 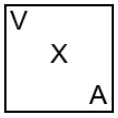

(4) 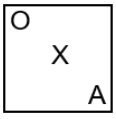

Q.26 What should come in place of the question mark (?) in the given series?
26 39 54 71 90 ?

दी गई श्रृंखला में प्रश्न चिह्न (?) के स्थान पर क्या आना चाहिए?
26 39 54 71 90 ?

(1) 116
(2) 120
(3) 111 ✔
(4) 124

Q.27 Select the set in which the numbers are related in the same way as are the numbers of the following sets.
(NOTE: Operations should be performed on the whole numbers, without breaking down the numbers into its constituent digits. E.g. 13 – Operations on 13 such as adding/subtracting/multiplying etc. to 13 can be performed. Breaking down 13 into 1 and 3 and then performing mathematical operations on 1 and 3 is not allowed.)
(25, 1050, 21)
(7, 336, 24)

उस समुच्चय का चयन करें जिसमें संख्याएँ उसी प्रकार संबंधित हैं जिस प्रकार निम्नलिखित समुच्चयों की संख्याएँ संबंधित हैं।
(ध्यान दें: संख्याओं को उनके घटक अंकों में तोड़े बिना, पूर्ण संख्याओं पर संक्रियाएँ की जानी चाहिए। उदाहरण के लिए, 13 – 13 पर संक्रियाएँ जैसे 13 में जोड़ना/घटाना/गुणा करना आदि किया जा सकता है। 13 को 1 और 3 में तोड़ना और फिर 1 और 3 पर गणितीय संक्रियाएँ करने की अनुमति नहीं है।)
(25, 1050, 21)
(7, 336, 24)

(1) (20, 607, 15)
(2) (21, 1057, 25)
(3) (13, 650, 25) ✔
(4) (50, 907, 9)

Q.28 Based on the English alphabetical order, three of the following four are alike in a certain way and thus form a group. Which is the one that does not belong to that group?
(Note: The odd man out is not based on the number of consonants/vowels or their position in the letter cluster.)

अंग्रेजी वर्णमाला क्रम के आधार पर, निम्नलिखित चार में से तीन किसी निश्चित प्रकार से एक समान हैं और इस प्रकार एक समूह बनाते हैं।
वह कौन-सा है जो उस समूह से संबंधित नहीं है?
(ध्यान दें: असंगत का चयन व्यंजनों/स्वरों की संख्या या अक्षर-समूह में उनके स्थान पर आधारित नहीं है।)

(1) NJI
(2) XZU ✔
(3) SON
(4) UQP

Q.29 If '×' means 'addition', '+' means 'subtraction', '−' means 'division' and '÷' means 'multiplication', then what will come in place of the question mark (?) in the following equation?
28 + 6 ÷ 3 × 20 − 1 = ?

यदि '×' का अर्थ 'जोड़', '+' का अर्थ 'घटाना', '−' का अर्थ 'भाग' और '÷' का अर्थ 'गुणा' है, तो निम्नलिखित समीकरण में प्रश्न चिह्न (?) के स्थान पर क्या आएगा?
28 + 6 ÷ 3 × 20 − 1 = ?

(1) 33
(2) 32
(3) 31
(4) 30 ✔

Q.30 135 is related to 15 following a certain logic. Following the same logic, 99 is related to 11. To which of the following is 153 related, following the same logic?
(NOTE: Operations should be performed on the whole numbers, without breaking down the numbers into its constituent digits. E.g. 13 – Operations on 13 such as adding/subtracting/multiplying etc. to 13 can be performed. Breaking down 13 into 1 and 3 and then performing mathematical operations on 1 and 3 is not allowed.)

135 एक निश्चित तर्क का अनुसरण करते हुए 15 से संबंधित है। उसी तर्क का अनुसरण करते हुए, 99, 11 से संबंधित है। उसी तर्क का अनुसरण करते हुए, 153 निम्नलिखित में से किससे संबंधित है?
(ध्यान दें: संख्याओं को उनके घटक अंकों में तोड़े बिना, पूर्ण संख्याओं पर संक्रियाएँ की जानी चाहिए। उदाहरण के लिए, 13 – 13 पर संक्रियाएँ जैसे 13 में जोड़ना/घटाना/गुणा करना आदि किया जा सकता है। 13 को 1 और 3 में तोड़ना और फिर 1 और 3 पर गणितीय संक्रियाएँ करने की अनुमति नहीं है।)

(1) 19
(2) 14
(3) 17 ✔
(4) 22

Q.31 What should come in place of the question mark (?) in the given series based on the English alphabetical order? JEI LGK NIM PKO ?

अंग्रेजी वर्णमाला क्रम के आधार पर दी गई श्रृंखला में प्रश्न चिह्न (?) के स्थान पर क्या आना चाहिए?
JEI LGK NIM PKO ?

(1) RMQ ✔
(2) RMP
(3) RNP
(4) RNQ

Q.32 What should come in place of the question mark (?) in the given series?
4, 28, ?, 1372, 9604, 67228

दी गई श्रृंखला में प्रश्न चिह्न (?) के स्थान पर क्या आना चाहिए?
4, 28, ?, 1372, 9604, 67228

(1) 123
(2) 196 ✔
(3) 456
(4) 789

Q.33 Select the set in which the numbers are related in the same way as the numbers of the following sets.
(NOTE: Operations should be performed on the whole numbers, without breaking down the numbers into their constituent digits. For example, 13 – Operations on 13 such as adding/deleting/multiplying, etc. to 13 can be performed. Breaking down 13 into 1 and 3 and then performing mathematical operations on 1 and 3 is not allowed.)
(12, 16, 192)
(13, 14, 182)
उस समुच्चय का चयन करें जिसमें संख्याएँ उसी प्रकार संबंधित हैं जिस प्रकार निम्नलिखित समुच्चयों की संख्याएँ संबंधित हैं।
(ध्यान दें: संख्याओं को उनके घटक अंकों में तोड़े बिना, पूर्ण संख्याओं पर संक्रियाएँ की जानी चाहिए। उदाहरण के लिए, 13 – 13 पर संक्रियाएँ जैसे 13 में जोड़ना/हटाना/गुणा करना आदि किया जा सकता है। 13 को 1 और 3 में तोड़ना और फिर 1 और 3 पर गणितीय संक्रियाएँ करने की अनुमति नहीं है।)
(12, 16, 192)
(13, 14, 182)

(1) (6, 17, 89)
(2) (6, 15, 90) ✔
(3) (7, 14, 68)
(4) (7, 13, 53)

Q.34 Based on the English alphabetical order, three of the following four letter-clusters are alike in a certain way and thus form a group. Which letter-cluster DOES NOT belong to that group?
(Note: The odd one out is not based on the number of consonants/vowels or their position in the letter-cluster.)
अंग्रेजी वर्णमाला क्रम के आधार पर, निम्नलिखित चार अक्षर-समूहों में से तीन किसी निश्चित प्रकार से एक समान हैं और इस प्रकार एक समूह बनाते हैं। कौन-सा अक्षर-समूह उस समूह से संबंधित नहीं है?
(ध्यान दें: असंगत का चयन व्यंजनों/स्वरों की संख्या या अक्षर-समूह में उनके स्थान पर आधारित नहीं है।)

(1) LTY ✔
(2) SPL
(3) QNJ
(4) VSO

Q.35 Based on the English alphabetical order, three of the following four letter-clusters are alike in a certain way and thus form a group. Which is the letter-cluster that DOES NOT belong to that group?
(Note: The odd one out is not based on the number of consonants/vowels or their position in the letter-cluster.)
अंग्रेजी वर्णमाला क्रम के आधार पर, निम्नलिखित चार अक्षर-समूहों में से तीन किसी निश्चित प्रकार से एक समान हैं और इस प्रकार एक समूह बनाते हैं। वह कौन-सा अक्षर-समूह है जो उस समूह से संबंधित नहीं है?
(ध्यान दें: असंगत का चयन व्यंजनों/स्वरों की संख्या या अक्षर-समूह में उनके स्थान पर आधारित नहीं है।)

(1) QOL
(2) MKH
(3) WUR
(4) TRP ✔

Q.36 If 2 is added to each odd digit and 1 is subtracted from each even digit in the number 53826127, what will be the sum of the highest and lowest digits of the number so formed?

यदि संख्या 53826127 में प्रत्येक विषम अंक में 2 जोड़ दिया जाए और प्रत्येक सम अंक में से 1 घटा दिया जाए, तो इस प्रकार बनी संख्या के सबसे बड़े और सबसे छोटे अंक का योग क्या होगा?

(1) 7
(2) 9
(3) **10** ✔
(4) 8

Q.37 If 'A' stands for '+' , 'B' stands for '-', 'C' stands for '×' and 'D' stands for '÷ ' , what will come in place of the question mark '?' in the following equation?

24 A 64 D 8 B 3 C 7=?

यदि 'A' का अर्थ '+', 'B' का अर्थ '-', 'C' का अर्थ '×' और 'D' का अर्थ '÷' है, तो निम्नलिखित समीकरण में प्रश्न चिह्न '?' के स्थान पर क्या आएगा?

24 A 64 D 8 B 3 C 7=?

(1) 13
(2) 17
(3) 9
(4) **11** ✔

Q.38 What should come in place of the question mark (?) in the given series?

11 16 26 41 61 ?

दी गई श्रृंखला में प्रश्न चिह्न (?) के स्थान पर क्या आना चाहिए?

11 16 26 41 61 ?

(1) **86** ✔
(2) 84
(3) 85
(4) 83

Q.39 HN 8 is related to GI -1 in a certain way. In the same way, SJ 5 is related to RE - 4. To which of the following is OK 14 related, following the same logic?

HN 8 एक निश्चित प्रकार से GI -1 से संबंधित है। उसी प्रकार, SJ 5, RE - 4 से संबंधित है। समान तर्क का अनुसरण करते हुए, OK 14 निम्नलिखित में से किससे संबंधित है?

(1) NG 7
(2) OF 5
(3) OG 7
(4) **NF 5** ✔

Q.40 If 'A' stands for '÷', 'B' stands for '×', 'C' stands for '+' and 'D' stands for '–', then what will come in place of the question mark (?) in the following equation?

37 D 48 B 47 A 16 C 42 = ?

यदि 'A' का अर्थ '÷', 'B' का अर्थ '×', 'C' का अर्थ '+' और 'D' का अर्थ '–' है, तो निम्नलिखित समीकरण में प्रश्न चिह्न (?) के स्थान पर क्या आएगा?

37 D 48 B 47 A 16 C 42 = ?

(1) −64
(2) −60
(3) **−62** ✔
(4) −61

General Awareness

Q.41 What is the main shrine called in the northern Nagara style of temple architecture?

मंदिर स्थापत्य की उत्तरी नागर शैली में मुख्य मंदिर को क्या कहा जाता है?

(1) Vimana / विमान

(2) Prasada / प्रासाद

(3) **Garbhagriha / गर्भगृह ✔**

(4) Mandapa / मंडप

Q.42 The Chalukyas of Kalyani came to power after the fall of _____ .

कल्याणी के चालुक्य _____ के पतन के बाद सत्ता में आए।

(1) Palas / पाल

(2) Hoysalas / होयसल

(3) **Rashtrakutas / राष्ट्रकूट ✔**

(4) Cholas / चोल

Q.43 Who emphasised the use of boycott as a weapon during the Swadeshi Movement (1905-1911) in India?

भारत में स्वदेशी आंदोलन (1905-1911) के दौरान एक हथियार के रूप में बहिष्कार के प्रयोग पर किसने बल दिया?

(1) Dadabhai Naoroji / दादाभाई नौरोजी

(2) Lala Lajpat Rai / लाला लाजपत राय

(3) Gopal Krishna Gokhale / गोपाल कृष्ण गोखले

(4) **Bal Gangadhar Tilak / बाल गंगाधर तिलक ✔**

Q.44 Which of the following provides for the establishment of an Inter-State Council for smooth transition of business between the Union and states and resolution of disputes?

निम्नलिखित में से कौन-सा, संघ और राज्यों के बीच कार्य के सुचारु संचालन तथा विवादों के समाधान के लिए एक अंतर-राज्य परिषद की स्थापना का प्रावधान करता है?

(1) Article 253 / अनुच्छेद 253

(2) Article 283 / अनुच्छेद 283

(3) **Article 263 / अनुच्छेद 263 ✔**

(4) Article 248 / अनुच्छेद 248

Q.45 Which Directive Principle was added by the 42nd Constitutional Amendment Act, 1976?

42वें संविधान संशोधन अधिनियम, 1976 द्वारा कौन-सा नीति निदेशक सिद्धांत जोड़ा गया था?

(1) **Free legal aid to the poor / गरीबों को निःशुल्क विधिक सहायता ✔**

(2) Organisation of village panchayats / ग्राम पंचायतों का संगठन

(3) Equal pay for equal work / समान कार्य के लिए समान वेतन

(4) Promotion of cottage industries / कुटीर उद्योगों को बढ़ावा

Q.46 Which of the following discusses socio-economic principles under the Directive Principles of State Policy?

निम्नलिखित में से कौन-सा, राज्य के नीति निदेशक सिद्धांतों के अंतर्गत सामाजिक-आर्थिक सिद्धांतों पर चर्चा करता है?

(1) Promote International peace and security / अंतर्राष्ट्रीय शांति और सुरक्षा को बढ़ावा देना

(2) Organise village panchayats / ग्राम पंचायतों का संगठन करना

(3) Protect historical monuments / ऐतिहासिक स्मारकों का संरक्षण करना

(4) **Equal pay for both men and women / पुरुषों और महिलाओं दोनों के लिए समान वेतन ✔**

Q.47 Which Indian territory was the first to come under European control after Alexander the Great's time, and whom was it acquired from in 1510?

सिकंदर महान के समय के बाद यूरोपीय नियंत्रण में आने वाला पहला भारतीय क्षेत्र कौन-सा था, और इसे 1510 में किससे प्राप्त किया गया था?

(1) Calicut, acquired from the Zamorin of Calicut / कालीकट, कालीकट के ज़मोरिन से प्राप्त

(2) Goa, acquired from the Sultan of Bijapur / गोवा, बीजापुर के सुल्तान से प्राप्त ✔

(3) Daman, acquired from the Sultan of Gujarat / दमन, गुजरात के सुल्तान से प्राप्त

(4) Cochin, acquired from the King of Travancore / कोचीन, त्रावणकोर के राजा से प्राप्त

Q.48 Which of the following initiatives, launched in October 2021, aims to integrate various modes of transport across India to improve connectivity and reduce logistics costs?

अक्टूबर 2021 में शुरू की गई निम्नलिखित में से किस पहल का उद्देश्य संपर्क (कनेक्टिविटी) में सुधार और लॉजिस्टिक्स लागत को कम करने के लिए पूरे भारत में परिवहन के विभिन्न साधनों को एकीकृत करना है?

(1) UDAN Scheme / उड़ान (UDAN) योजना

(2) Bharatmala Pariyojana / भारतमाला परियोजना

(3) PM Gati Shakti National Master Plan / पीएम गति शक्ति राष्ट्रीय मास्टर प्लान ✔

(4) Sagarmala Project / सागरमाला परियोजना

Q.49 When did the Government of India approve the BharatNet project?

भारत सरकार ने भारतनेट परियोजना को कब मंजूरी दी थी?

(1) 2013

(2) 2014

(3) 2012

(4) 2011 ✔

Q.50 Why do northeast trade winds bring little to no rainfall to India?

उत्तर-पूर्वी व्यापारिक पवनें भारत में बहुत कम या बिल्कुल भी वर्षा क्यों नहीं लाती हैं?

(1) They originate over land and carry little moisture / ये स्थल के ऊपर उत्पन्न होती हैं और कम नमी ले जाती हैं ✔

(2) They blow over oceans and lose moisture / ये महासागरों के ऊपर से बहती हैं और नमी खो देती हैं

(3) They are diverted by the Western Ghats / ये पश्चिमी घाट द्वारा मोड़ दी जाती हैं

(4) They are blocked by the Himalayas / ये हिमालय द्वारा अवरुद्ध कर दी जाती हैं

Q.51 What was the main method used by moderates to protest the partition?

विभाजन का विरोध करने के लिए नरमपंथियों द्वारा प्रयोग की गई मुख्य विधि क्या थी?

(1) Boycott of British goods / ब्रिटिश वस्तुओं का बहिष्कार

(2) Violent rebellion / हिंसक विद्रोह

(3) Forming armies / सेनाएँ बनाना

(4) Petitions and speeches / याचिकाएँ और भाषण ✔

Q.52 In which year was the Public Accounts Committee first set up in India?

भारत में लोक लेखा समिति का गठन पहली बार किस वर्ष किया गया था?

(1) 1935

(2) 1950

(3) 1947

(4) 1921 ✔

Q.53 Which of the following options best explains the role of Bahadur Shah Zafar during the Revolt of 1857?
निम्नलिखित में से कौन-सा विकल्प 1857 के विद्रोह के दौरान बहादुर शाह ज़फ़र की भूमिका को सबसे अच्छी तरह स्पष्ट करता है?

(1) He formed an alliance with the British to suppress the rebels. / उन्होंने विद्रोहियों को दबाने के लिए अंग्रेजों के साथ गठबंधन किया।

(2) He remained neutral and refused to get involved. / वे तटस्थ रहे और इसमें शामिल होने से इनकार कर दिया।

(3) He led the sepoys into direct battle against the British. / उन्होंने अंग्रेजों के विरुद्ध सीधे युद्ध में सिपाहियों का नेतृत्व किया।

(4) He was declared the symbolic leader of the revolt by the rebels. / विद्रोहियों द्वारा उन्हें विद्रोह का प्रतीकात्मक नेता घोषित किया गया था। ✔

Q.54 The annual Mamallapuram Dance Festival is organised in which state, in which Indian classical dances including Bharatanatyam, Kuchipudi, Kathak, Mohiniattam, Odissi and Kathakali are performed?
वार्षिक मामल्लपुरम नृत्य महोत्सव किस राज्य में आयोजित किया जाता है, जिसमें भरतनाट्यम, कुचिपुड़ी, कथक, मोहिनीअट्टम, ओडिसी और कथकली सहित भारतीय शास्त्रीय नृत्य प्रस्तुत किए जाते हैं?

(1) Karnataka / कर्नाटक

(2) Kerala / केरल

(3) Odisha / ओडिशा

(4) Tamil Nadu / तमिलनाडु ✔

Q.55 Vishu—a festival associated with harvest, prosperity, hope, and happiness—has traditionally been celebrated primarily in which state of India?
विशु—फसल, समृद्धि, आशा और खुशी से जुड़ा एक त्योहार—पारंपरिक रूप से मुख्यतः भारत के किस राज्य में मनाया जाता रहा है?

(1) Tamil Nadu / तमिलनाडु

(2) Karnataka / कर्नाटक

(3) Odisha / ओडिशा

(4) Kerala / केरल ✔

Q.56 Which type of mass movement is characterized by the downward slipping of a mass of rock or unconsolidated material moving as a unit along a curved surface?
किस प्रकार के बृहत् संचलन की विशेषता, चट्टान या असंगठित पदार्थ के एक पिंड का एक इकाई के रूप में किसी वक्र सतह के साथ नीचे की ओर खिसकना है?

(1) Creep / मृदा सर्पण

(2) Rockslide / शैल सर्पण

(3) Rockfall / शैल पतन

(4) Slump / अवसर्पण ✔

Q.57 The Karakoram Pass, a key historical trade route, is located on which of the following international borders of India?
प्रमुख ऐतिहासिक व्यापार मार्ग, काराकोरम दर्रा, भारत की निम्नलिखित में से किस अंतर्राष्ट्रीय सीमा पर स्थित है?

(1) Nepal / नेपाल

(2) China / चीन ✔

(3) Bangladesh / बांग्लादेश

(4) Afghanistan / अफ़ग़ानिस्तान

Q.58 What is the main objective of the Panchayati Raj system in India, in the context of the recommendations of the Balwant Rai Mehta Committee in 1957?
1957 में बलवंत राय मेहता समिति की सिफारिशों के संदर्भ में, भारत में पंचायती राज व्यवस्था का मुख्य उद्देश्य क्या है?

(1) Democratic decentralization / लोकतांत्रिक विकेंद्रीकरण ✔
(2) Strengthening the powers of the Executive / कार्यपालिका की शक्तियों को सुदृढ़ करना
(3) Direct intervention of the Judiciary in rural affairs / ग्रामीण मामलों में न्यायपालिका का प्रत्यक्ष हस्तक्षेप
(4) Centralization of administrative authority / प्रशासनिक प्राधिकार का केंद्रीकरण

Q.59 Which tree from the following is most dominant in Tropical Deciduous Forests?
निम्नलिखित में से कौन-सा वृक्ष उष्णकटिबंधीय पर्णपाती वनों में सबसे अधिक प्रमुख है?

(1) Ebony / आबनूस
(2) Rosewood / शीशम
(3) Teak / सागौन ✔
(4) Mahogony / महोगनी

Q.60 Khizr Khan, the most proficient leader of the Sayyid dynasty, governed Delhi from 1414 until what year?
सैयद वंश के सबसे कुशल शासक खिज्र खान ने 1414 से किस वर्ष तक दिल्ली पर शासन किया?

(1) 1445
(2) 1450
(3) 1437
(4) 1421 ✔

Q.61 As of March 2025, how many Tele MANAS Cells have been established across various states/union territories, ensuring local access to mental health services?
मार्च 2025 तक, मानसिक स्वास्थ्य सेवाओं तक स्थानीय पहुँच सुनिश्चित करते हुए, विभिन्न राज्यों/केंद्र शासित प्रदेशों में कितने टेली मानस (Tele MANAS) प्रकोष्ठ स्थापित किए गए हैं?

(1) 51
(2) 45
(3) 48
(4) 53 ✔

Q.62 Who won the Best Cinematography award at the Oscars 2025?
ऑस्कर 2025 में सर्वश्रेष्ठ छायांकन (Best Cinematography) का पुरस्कार किसने जीता?

(1) Sean Baker / शॉन बेकर
(2) Adrien Brody / एड्रियन ब्रॉडी
(3) Mikey Madison / मिकी मैडिसन
(4) Lol Crawley / लोल क्रॉली ✔

Q.63 The 2025 World Athletics Championships will be held in which city?
2025 विश्व एथलेटिक्स चैंपियनशिप किस शहर में आयोजित की जाएगी?

(1) Beijing / बीजिंग
(2) Osaka / ओसाका
(3) Tokyo / टोक्यो ✔
(4) Seoul / सियोल

Q.64 Which of the following is a bacterial disease?
निम्नलिखित में से कौन-सा एक जीवाणुजनित रोग है?

(1) AIDS / एड्स
(2) Influenza / इन्फ्लुएंजा
(3) Ringworm / दाद
(4) Typhoid / टाइफाइड ✔

Q.65 As of January 2025, how many countries had signed the Artemis Accords for space cooperation?
जनवरी 2025 तक, अंतरिक्ष सहयोग के लिए आर्टेमिस समझौते (Artemis Accords) पर कितने देशों ने हस्ताक्षर किए थे?

(1) 45
(2) 25
(3) 37
(4) 53 ✔

Q.66 Which state government announced that its upcoming 'Zero Poverty' Mission will be named after Bharat Ratna Dr. Bhimrao Ambedkar in April 2025?
किस राज्य सरकार ने अप्रैल 2025 में घोषणा की कि उसके आगामी 'शून्य गरीबी' (Zero Poverty) मिशन का नाम भारत रत्न डॉ. भीमराव अंबेडकर के नाम पर रखा जाएगा?

(1) Uttar Pradesh / उत्तर प्रदेश ✔
(2) Madhya Pradesh / मध्य प्रदेश
(3) Bihar / बिहार
(4) Maharashtra / महाराष्ट्र

Q.67 Consider the following statements with respect to GST composition scheme in India.
1. The GST composition scheme has brought simplicity and reduced the compliance cost for small taxpayers.
2. Businesses dealing with goods having an annual aggregate turnover up to ₹1.5 crore can opt into the composition scheme.
3. A person registered under composition scheme is required to file in total only 5 returns.
Which of the given statements is/are correct?
भारत में GST कंपोजिशन (संरचना) योजना के संबंध में निम्नलिखित कथनों पर विचार करें।
1. GST कंपोजिशन योजना ने छोटे करदाताओं के लिए सरलता लाई है और अनुपालन लागत को कम किया है।
2. ₹1.5 करोड़ तक के वार्षिक कुल कारोबार वाले, वस्तुओं का व्यापार करने वाले व्यवसाय कंपोजिशनयोजना का विकल्प चुन सकते हैं।
3. कंपोजिशन योजना के अंतर्गत पंजीकृत व्यक्ति को कुल मिलाकर केवल 5 रिटर्न दाखिल करने होते हैं।
दिए गए कथनों में से कौन-सा/से सही है/हैं?

(1) 1, 2 and 3 / 1, 2 और 3 ✔
(2) Only 2 and 3 / केवल 2 और 3
(3) Only 1 and 2 / केवल 1 और 2
(4) Only 3 / केवल 3

Q.68 When did India launch its First Five-Year Plan?
भारत ने अपनी पहली पंचवर्षीय योजना कब शुरू की?

(1) 1961
(2) 1951 ✔
(3) 1950
(4) 1947

Q.69 As of February 2025, India is home to how many Gram Panchayats and Rural Local Bodies?
फरवरी 2025 तक, भारत में कितनी ग्राम पंचायतें और ग्रामीण स्थानीय निकाय हैं?

(1) 3.12 Lakhs / 3.12 लाख
(2) **2.68 Lakhs / 2.68 लाख ✔**
(3) 3.95 Lakhs / 3.95 लाख
(4) 1.53 Lakhs / 1.53 लाख

Q.70 Who was awarded the prestigious Abel Prize in March 2025 for contributions to algebraic analysis and representation theory?
बीजगणितीय विश्लेषण और निरूपण सिद्धांत में योगदान के लिए मार्च 2025 में प्रतिष्ठित एबेल पुरस्कार से किसे सम्मानित किया गया?

(1) **Masaki Kashiwara / मसाकी काशिवारा ✔**
(2) Robert Langlands / रॉबर्ट लैंगलैंड्स
(3) Andrew Wiles / एंड्रयू वाइल्स
(4) Caucher Birkar / कौचर बिरकर

Q.71 Which of the following is a part of economic infrastructure?
निम्नलिखित में से कौन-सा आर्थिक अवसंरचना का एक भाग है?

(1) National parks / राष्ट्रीय उद्यान
(2) Primary schools / प्राथमिक विद्यालय
(3) **Roads and highways / सड़कें और राजमार्ग ✔**
(4) Cultural centres / सांस्कृतिक केंद्र

Q.72 According to the World Bank, how many Indians were living in extreme poverty (on less than $2.15 per day) in 2024?
विश्व बैंक के अनुसार, 2024 में कितने भारतीय अत्यधिक गरीबी में (प्रतिदिन $2.15 से कम पर) जीवन यापन कर रहे थे?

(1) **129 million / 129 मिलियन ✔**
(2) 200 million / 200 मिलियन
(3) 431 million / 431 मिलियन
(4) 300 million / 300 मिलियन

Q.73 Where was India's first Quantum Technology Park launched in April 2025?
अप्रैल 2025 में भारत का पहला क्वांटम प्रौद्योगिकी पार्क कहाँ शुरू किया गया?

(1) Bengaluru / बेंगलुरु
(2) Noida / नोएडा
(3) **Amaravati / अमरावती ✔**
(4) Pune / पुणे

Q.74 Which of the following is NOT a characteristic of a compound?
निम्नलिखित में से कौन-सी यौगिक की विशेषता नहीं है?

(1) It has a fixed composition. / इसका संघटन निश्चित होता है।
(2) **It can be separated by physical means. / इसे भौतिक विधियों द्वारा पृथक किया जा सकता है। ✔**
(3) It has properties different from its constituent elements. / इसके गुण इसके घटक तत्वों से भिन्न होते हैं।
(4) It follows the law of definite proportions. / यह निश्चित अनुपात के नियम का पालन करता है।

Q.75 According to the World Bank report Spring 2025 Poverty and Equity Brief, India has lifted how many people out of extreme poverty?
विश्व बैंक की रिपोर्ट स्प्रिंग 2025 पॉवर्टी एंड इक्विटी ब्रीफ के अनुसार, भारत ने कितने लोगों को अत्यधिक गरीबी से बाहर निकाला है?

(1) 141 million / 141 मिलियन
(2) 151 million / 151 मिलियन
(3) 161 million / 161 मिलियन
(4) 171 million / 171 मिलियन ✔

Q.76 Consider the following statements regarding India's performance at the 2025 World Boxing Cup in Astana:
1. Indian women boxers Sakshi, Jaismine, and Nupur won gold medals in their respective weight categories.
2. India recorded its best-ever medal tally at the event, finishing with a total of 11 medals.
Which of the statements given above is/are correct?
अस्ताना में आयोजित 2025 विश्व मुक्केबाजी कप में भारत के प्रदर्शन के संबंध में निम्नलिखित कथनों पर विचार करें:
1. भारतीय महिला मुक्केबाज साक्षी, जैस्मिन और नूपुर ने अपने-अपने भार वर्गों में स्वर्ण पदक जीते।
2. भारत ने इस प्रतियोगिता में कुल 11 पदकों के साथ अपनी अब तक की सर्वश्रेष्ठ पदक तालिका दर्ज की।
उपर्युक्त कथनों में से कौन-सा/से सही है/हैं?

(1) 2 only / केवल 2
(2) 1 only / केवल 1
(3) Neither 1 nor 2 / न तो 1 और न ही 2
(4) Both 1 and 2 / 1 और 2 दोनों ✔

Q.77 What was the theme of the 6th meeting of the European Political Community in Tirana in May 2025?
मई 2025 में तिराना में यूरोपीय राजनीतिक समुदाय की 6वीं बैठक का विषय क्या था?

(1) "Europe United: Strength in Diversity" / "यूरोप एकजुट: विविधता में शक्ति"
(2) "New Europe in a new world: unity – cooperation – joint action" / "नई दुनिया में नया यूरोप: एकता – सहयोग – संयुक्त कार्रवाई" ✔
(3) "Security, Prosperity and Connectivity for All – joint action" / "सभी के लिए सुरक्षा, समृद्धि और संपर्क – संयुक्त कार्रवाई"
(4) "Global Challenges, European Solutions" / "वैश्विक चुनौतियाँ, यूरोपीय समाधान"

Q.78 Who among the following won the BBC Sports Personality World Sport Star of the Year award in 2025?
निम्नलिखित में से किसने 2025 में बीबीसी स्पोर्ट्स पर्सनैलिटी वर्ल्ड स्पोर्ट स्टार ऑफ द ईयर पुरस्कार जीता?

(1) Mariona Caldentey / मारियोना काल्डेंटे
(2) Sydney McLaughlin-Levrone / सिडनी मैकलॉघलिन-लेवरोन
(3) Sifan Hassan / सिफान हसन
(4) Armand Duplantis / आर्मंड डुप्लांटिस ✔

Q.79 Leaves have tiny, microscopic pores on their surfaces that allow gases to move in and out. These small openings are called:
पत्तियों की सतह पर छोटे, सूक्ष्म छिद्र होते हैं जो गैसों को अंदर और बाहर आने-जाने देते हैं। इन छोटे छिद्रों को क्या कहा जाता है:

(1) Roots / जड़ें
(2) Veins / शिराएँ
(3) Tendrils / प्रतान
(4) Stomata / रंध्र ✔

Q.80 Which body supervises the financial performance of urban local bodies?
शहरी स्थानीय निकायों के वित्तीय प्रदर्शन का पर्यवेक्षण कौन-सा निकाय करता है?

(1) State Government / राज्य सरकार
(2) **State Finance Commission / राज्य वित्त आयोग ✔**
(3) NITI Aayog / नीति आयोग
(4) Planning Commission / योजना आयोग

Arithmetical and Numerical Ability

Q.81 How many natural numbers less than 100 are co-prime to 100?
100 से कम कितनी प्राकृत संख्याएँ 100 के साथ सह-अभाज्य हैं?

(1) 48
(2) 52
(3) **40 ✔**
(4) 50

Q.82 Amit invested equal amounts at both simple interest and compound interest, compounded annually, for 2 years at the same rate of 4% per annum. At the end of the period, he noticed a difference of ₹54 between the two interests earned. What was the principal amount (in ₹) invested in each case?
अमित ने समान राशियों को 2 वर्ष के लिए 4% वार्षिक की समान दर पर साधारण ब्याज और वार्षिक रूप से संयोजित चक्रवृद्धि ब्याज, दोनों पर निवेश किया। अवधि के अंत में, उसने अर्जित दोनों ब्याजों के बीच ₹54 का अंतर देखा।
प्रत्येक स्थिति में निवेश की गई मूलधन राशि (₹ में) कितनी थी?

(1) 32850
(2) 34100
(3) 33000
(4) **33750 ✔**

Q.83 The population of a town increases at the rate of 4% per annum. If the current population is 50,000, what will be the population after 2 years?
एक कस्बे की जनसंख्या 4% वार्षिक की दर से बढ़ती है। यदि वर्तमान जनसंख्या 50,000 है, तो 2 वर्ष बाद जनसंख्या कितनी होगी?

(1) **54,080 ✔**
(2) 54,600
(3) 54,000
(4) 54,216

Q.84 7/2 times the square root of a natural number is 2 less then the number itself. Find the number.
किसी प्राकृत संख्या के वर्गमूल का 7/2 गुना, स्वयं उस संख्या से 2 कम है। संख्या ज्ञात कीजिए।

(1) 14
(2) 12
(3) 10
(4) **16 ✔**

Q.85 Nirmal invests a sum of ₹6,600 and Rakesh invests a sum of ₹9,400 at the same rate of simple interest per annum. If, at the end of 6 years, Rakesh gets ₹840 more interest than Nirmal, then find the rate of interest per annum (in percentage).

निर्मल ₹6,600 की राशि और राकेश ₹9,400 की राशि साधारण ब्याज की समान वार्षिक दर पर निवेश करते हैं। यदि 6 वर्ष के अंत में राकेश को निर्मल से ₹840 अधिक ब्याज मिलता है, तो वार्षिक ब्याज दर (प्रतिशत में) ज्ञात कीजिए।

(1) 5 ✔
(2) 4
(3) 3
(4) 7

Q.86 The following table shows the number of engineers recruited by four companies, P, Q, R and S, over the years 2015 to 2019. Study the table and answer the question that follows.
Years P Q R S 2015 120 132 140 116 2016 114 105 150 125 2017 97 116 122 100 2018 100 112 116 97 2019 94 118 110 128 Find the ratio of the total number of engineers recruited by companies P and R in 2016 and 2018 to the total number of engineers recruited by companies Q and S in 2015 and 2017.

निम्नलिखित तालिका वर्ष 2015 से 2019 के दौरान चार कंपनियों, P, Q, R और S द्वारा भर्ती किए गए इंजीनियरों की संख्या को दर्शाती है। तालिका का अध्ययन करें और नीचे दिए गए प्रश्न का उत्तर दें।
वर्ष P Q R S 2015 120 132 140 116 2016 114 105 150 125 2017 97 116 122 100 2018 100 112 116 97 2019 94 118 110 128 वर्ष 2016 और 2018 में कंपनी P और R द्वारा भर्ती किए गए इंजीनियरों की कुल संख्या का, वर्ष 2015 और 2017 में कंपनी Q और S द्वारा भर्ती किए गए इंजीनियरों की कुल संख्या से अनुपात ज्ञात कीजिए।

(1) 30 : 31
(2) 28 : 29
(3) 29 : 26
(4) 30 : 29 ✔

Q.87 Find the least number which gives remainder 2 when divided by 3, 4, and 5, and is also a multiple of 2.

वह सबसे छोटी संख्या ज्ञात कीजिए जिसे 3, 4 और 5 से विभाजित करने पर शेषफल 2 प्राप्त होता है, और जो 2 का गुणज भी है।

(1) 62 ✔
(2) 42
(3) 32
(4) 82

Q.88 Simplify 240 ÷ [16 ÷ 8 x {19 + 16 − (1 + 1 − (6 + 1))}]

सरल कीजिए 240 ÷ [16 ÷ 8 x {19 + 16 − (1 + 1 − (6 + 1))}]

(1) 3 ✔
(2) 4
(3) 12
(4) 13

Q.89 Study the following graph showing Imports and Exports, in ₹ thousands, of a country from 1990-91 to 1994-95 and answer the question given below.

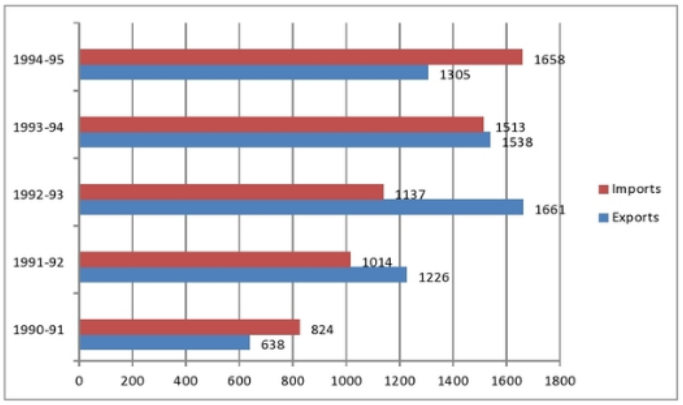

What is the value of average Exports (in ₹ thousands) from 1990-91 to 1994-95?

निम्नलिखित ग्राफ का अध्ययन कीजिए जो 1990-91 से 1994-95 तक एक देश के आयात और निर्यात (₹ हज़ार में) को दर्शाता है और नीचे दिए गए प्रश्न का उत्तर दीजिए।

1990-91 से 1994-95 तक औसत निर्यात (₹ हज़ार में) का मान क्या है?

(1) 1243.6

(2) **1273.6** ✔

(3) 1253.6

(4) 1263.6

Q.90 The LCM of two numbers is 12 times their HCF, and the sum of LCM and HCF is 130. If one of the numbers is 40, find the other number.

दो संख्याओं का LCM उनके HCF का 12 गुना है, और LCM तथा HCF का योग 130 है। यदि उनमें से एक संख्या 40 है, तो दूसरी संख्या ज्ञात कीजिए।

(1) 50

(2) **30** ✔

(3) 32

(4) 24

Q.91 A vendor bought lemons at 40 for a rupee. How many must he sell for a rupee to gain 60%?

एक विक्रेता ने एक रुपये में 40 की दर से नींबू खरीदे। 60% लाभ प्राप्त करने के लिए उसे एक रुपये में कितने नींबू बेचने चाहिए?

(1) **25** ✔

(2) 20

(3) 30

(4) 28

Q.92 Given that $8^{0.31} = x$, $8^{0.74} = y$ and $x^z = y^7$, then the value of z is close to:

दिया गया है कि $8^{0.31} = x$, $8^{0.74} = y$ और $x^z = y^7$ है, तो z का मान लगभग है:

(1) **16.71** ✔

(2) 19.29

(3) 15.6

(4) 18.24

QuickSarkari.com | WhatsApp Channel | Telegram: t.me/quick_sarkari

Q.93 A grocer mixes two varieties of wheat costing ₹ 100 per kg and ₹ 120 per kg in the ratio 2: 3. What is the price per kg of the resulting mixture?

एक पंसारी ₹ 100 प्रति kg और ₹ 120 प्रति kg मूल्य वाली गेहूँ की दो किस्मों को 2: 3 के अनुपात में मिलाता है। परिणामी मिश्रण का प्रति kg मूल्य क्या है?

(1) ₹ 106

(2) ₹ 102

(3) ₹ 112 ✔

(4) ₹ 110

Q.94 The average of the squares of the first 173 natural numbers is:

प्रथम 173 प्राकृत संख्याओं के वर्गों का औसत है:

(1) 10064.5

(2) 10064

(3) 10062

(4) 10063 ✔

Q.95 In an election between two candidates, one got 65% of the total valid votes. If the total number of valid votes was 124000, the number of valid votes that the other candidate got was:

दो उम्मीदवारों के बीच हुए एक चुनाव में, एक उम्मीदवार को कुल वैध मतों के 65% मत मिले। यदि वैध मतों की कुल संख्या 124000 थी, तो दूसरे उम्मीदवार को मिले वैध मतों की संख्या थी:

(1) 33400

(2) 34300

(3) 43400 ✔

(4) 44300

Q.96 The average weight of a group of 18 people is 60 kg. If three new persons of weight 68 kg, 70 kg and 72 kg joined the group and one person of weight 64 kg left the group. Find the new average weight of the group.

18 व्यक्तियों के एक समूह का औसत भार 60 kg है। यदि 68 kg, 70 kg और 72 kg भार वाले तीन नए व्यक्ति समूह में शामिल हुए और 64 kg भार वाला एक व्यक्ति समूह छोड़कर चला गया, तो समूह का नया औसत भार ज्ञात कीजिए।

(1) 65.7 kg

(2) 63.4 kg

(3) 61.3 kg ✔

(4) 62.5 kg

Q.97 The ratio of the cost prices of articles X and Y is 3 : 7. A man earns a profit of 17% by selling X and loses 33% by selling Y. What is his gain/loss percentage in the entire transaction?

वस्तुओं X और Y के क्रय मूल्यों का अनुपात 3 : 7 है। एक व्यक्ति X को बेचकर 17% का लाभ अर्जित करता है और Y को बेचकर 33% की हानि उठाता है। पूरे लेन-देन में उसका लाभ/हानि प्रतिशत क्या है?

(1) Gain, 18% / लाभ, 18%

(2) Loss, 17.5% / हानि, 17.5%

(3) Loss, 18% / हानि, 18% ✔

(4) Gain, 19.5% / लाभ, 19.5%

Q.98 Find the sum of squares of all natural numbers from 13 to 25.

13 से 25 तक की सभी प्राकृत संख्याओं के वर्गों का योग ज्ञात कीजिए।

(1) 5525

(2) 4285

(3) 3655

(4) 4875 ✔

Q.99 Convert $2.3\overline{4}$ to a vulgar fraction.

$2.3\overline{4}$ को साधारण भिन्न में बदलिए।

(1) 214/90

(2) 213/90

(3) 212/90

(4) 211/90 ✔

Q.100 If 60% of a number is added to 240, then the result is the same number. 60% of the same number is:

यदि किसी संख्या का 60%, 240 में जोड़ा जाता है, तो परिणाम वही संख्या प्राप्त होती है। उसी संख्या का 60% है:

(1) 600

(2) 540

(3) 360 ✔

(4) 380

Q.101 A shopkeeper marks an article at ₹x and offers a discount of 55% on it. He sells it for ₹369 after charging VAT of 64% on the discounted price. What is the value of x?

एक दुकानदार किसी वस्तु पर ₹x मूल्य अंकित करता है और उस पर 55% की छूट देता है। वह छूट वाले मूल्य पर 64% VAT लगाने के बाद इसे ₹369 में बेचता है। x का मान क्या है?

(1) 200

(2) 500 ✔

(3) 300

(4) 400

Q.102 A boat's speed in still water is 18 km/h. It takes 2 hours to go downstream and 3 hours to return. What is the speed of the stream?

स्थिर जल में एक नाव की चाल 18 km/h है। इसे धारा के अनुकूल जाने में 2 घंटे और वापस आने में 3 घंटे लगते हैं। धारा की चाल क्या है?

(1) 2.6 km/h

(2) 3.6 km/h ✔

(3) 3.2 km/h

(4) 2.5 km/h

Q.103 A shopkeeper fixes the marked price of an item 150% above its cost price. What percentage of discount on the marked price should be allowed to gain 130%?

एक दुकानदार किसी वस्तु का अंकित मूल्य उसके क्रय मूल्य से 150% अधिक निर्धारित करता है। 130% लाभ प्राप्त करने के लिए अंकित मूल्य पर कितने प्रतिशत की छूट दी जानी चाहिए?

(1) 8% ✔

(2) 7%

(3) 5%

(4) 10%

Q.104 A tap fills a cistern in 35 hours. Another tap empties the full tank in 84 hours. How long (in hours) will it take to fill one- third of the tank, if the tank is empty initially and both the taps are opened together?

एक नल किसी टंकी को 35 घंटे में भरता है। दूसरा नल पूरी भरी टंकी को 84 घंटे में खाली कर देता है। यदि टंकी आरंभ में खाली है और दोनों नल एक साथ खोल दिए जाते हैं, तो टंकी का एक-तिहाई भाग भरने में कितना समय (घंटों में) लगेगा?

(1) 60

(2) 20 ✔

(3) 80

(4) 40

Q.105 P and Q together have ₹ 18300. If 4/15 th of P's amount is equal to the 2/5 th of Q's amount, how much amount does Q have?

P और Q के पास मिलकर ₹ 18300 हैं। यदि P की राशि का 4/15 भाग, Q की राशि के 2/5 भाग के बराबर है, तो Q के पास कितनी राशि है?

(1) ₹ 7120

(2) ₹ 7220

(3) ₹ 7320 ✔

(4) ₹ 7420

Q.106 Find the fourth proportion of 9, 24, and 15.

9, 24 और 15 का चतुर्थानुपाती ज्ञात कीजिए।

(1) 40 ✔

(2) 36

(3) 42

(4) 38

Q.107 A conical tent is to be made of canvas, with a base radius of 28 m and a height of 45 m. How many meters of canvas will be required if the width of the canvas is 11 m?

(Use π = 22/7)

28 m आधार त्रिज्या और 45 m ऊँचाई वाला एक शंक्वाकार तंबू कैनवास से बनाया जाना है। यदि कैनवास की चौड़ाई 11 m है, तो कितने मीटर कैनवास की आवश्यकता होगी?

(π = 22/7 लीजिए)

(1) 212

(2) 424 ✔

(3) 466

(4) 464

Q.108 A can do a piece of work in 16 days, B can do it in 18 days and C can do it in 20 days. They work alternately, starting with A, then B, then C and so on. How long will they take to complete the work?

A किसी काम को 16 दिनों में, B उसे 18 दिनों में और C उसे 20 दिनों में कर सकता है। वे बारी-बारी से कार्य करते हैं, A से शुरू करके, फिर B, फिर C और इसी प्रकार आगे। काम को पूरा करने में उन्हें कितना समय लगेगा?

(1) 15 4/9 days / 15 4/9 दिन

(2) 12 3/4 days / 12 3/4 दिन

(3) 14 2/7 days / 14 2/7 दिन

(4) 17 5/6 days / 17 5/6 दिन ✔

Q.109 If 603 apples were distributed among Rohit, Maya, and Vikas in the ratio 1/6 : 1/2 : 1/3, how many apples did Vikas get?

यदि 603 सेब रोहित, माया और विकास के बीच 1/6 : 1/2 : 1/3 के अनुपात में बाँटे गए, तो विकास को कितने सेब मिले?

(1) 211

(2) 221

(3) 201 ✔

(4) 191

Q.110 The marked price of a shirt is ₹ 1000. A shopkeeper offers 10% discount on this shirt and then again offers 20% discount on the new price. How much will you have to pay, finally?

एक कमीज़ का अंकित मूल्य ₹ 1000 है। एक दुकानदार इस कमीज़ पर 10% की छूट देता है और फिर नए मूल्य पर पुनः 20% की छूट देता है। अंततः आपको कितना भुगतान करना होगा?

(1) ₹ 710

(2) ₹ 700

(3) ₹ 730

(4) ₹ 720 ✔

Q.111 If the radius of a cylinder is doubled and the height is halved, the volume will be _____ the original volume.

यदि किसी बेलन की त्रिज्या दोगुनी कर दी जाए और ऊँचाई आधी कर दी जाए, तो आयतन मूल आयतन का _____ होगा।

(1) double / दोगुना ✔

(2) four times / चार गुना

(3) half of / आधा

(4) same as / समान

Q.112 The total surface area (in m^2) of a cube, each of whose edges measures 112 m, is:

एक घन, जिसके प्रत्येक किनारे की माप 112 m है, का कुल पृष्ठीय क्षेत्रफल (m^2 में) है:

(1) 75240

(2) 75264 ✔

(3) 75294

(4) 75276

Q.113 An open water drum is in the form of a cylinder. The height of the drum is 61 m and its internal diameter is 82 m. Find the area (in m^2, round off to one decimal place) that needs to be painted if one wants to paint the inside of the drum. (Use π = 22/7)

पानी का एक खुला ड्रम बेलन के आकार का है। ड्रम की ऊँचाई 61 m है और इसका आंतरिक व्यास 82 m है। यदि कोई ड्रम के अंदर के भाग को पेंट करना चाहता है, तो पेंट किया जाने वाला क्षेत्रफल (m^2 में, एक दशमलव स्थान तक पूर्णांकित) ज्ञात कीजिए।
(π = 22/7 लीजिए)

(1) 20996.9

(2) 21003.7 ✔

(3) 21011.5

(4) 20992.8

Q.114 Two trains of lengths 200 m and 300 m are moving towards each other on parallel tracks. The faster train has a speed of 90 km/h and the slower train has a speed of 54 km/h. How long will it take for the trains to completely cross each other?

200 m और 300 m लंबाई की दो रेलगाड़ियाँ समानांतर पटरियों पर एक-दूसरे की ओर चल रही हैं। तेज़ रेलगाड़ी की चाल 90 km/h है और धीमी रेलगाड़ी की चाल 54 km/h है। रेलगाड़ियों को एक-दूसरे को पूरी तरह पार करने में कितना समय लगेगा?

(1) 15 seconds / 15 सेकंड

(2) 13.25 seconds / 13.25 सेकंड

(3) 10.2 seconds / 10.2 सेकंड

(4) 12.5 seconds / 12.5 सेकंड ✔

Q.115 Find the total surface area of a frustum of a cone, if the radius of the circular ends are 16 cm and 8 cm. Also, height of a frustum of a cone is 6 cm.

(Take π = 22/7)

शंकु के एक छिन्नक का कुल पृष्ठीय क्षेत्रफल ज्ञात कीजिए, यदि इसके वृत्ताकार सिरों की त्रिज्याएँ 16 cm और 8 cm हैं। साथ ही, शंकु के छिन्नक की ऊँचाई 6 cm है।

(π = 22/7 लीजिए)

(1) 1672 cm^2

(2) 1674 cm^2

(3) 1760 cm^2 ✔

(4) 1670 cm^2

Q.116 The base and the corresponding height of a parallelogram are 98 cm and 20 cm, respectively. The area of the parallelogram (in cm^2) is:

एक समांतर चतुर्भुज का आधार और संगत ऊँचाई क्रमशः 98 cm और 20 cm हैं। समांतर चतुर्भुज का क्षेत्रफल (cm^2 में) है:

(1) 2006

(2) 1960 ✔

(3) 1931

(4) 1970

Q.117 Two taps can fill a cistern in 2 hours and 41 hours, respectively. A third tap can empty it in 41 hours. How long (in hours) will it take to fill the empty cistern, if all of them are opened together?

दो नल किसी टंकी को क्रमशः 2 घंटे और 41 घंटे में भर सकते हैं। एक तीसरा नल इसे 41 घंटे में खाली कर सकता है। यदि सभी नल एक साथ खोल दिए जाएँ, तो खाली टंकी को भरने में कितना समय (घंटों में) लगेगा?

(1) 2 ✔

(2) 4

(3) 5

(4) 3

Q.118 Three partners Geeta, Mukul and Ravi invest ₹440, ₹390, and ₹830, respectively, in a business. If they divide a profit of ₹760, then find the share of profit received by Ravi.

तीन साझेदार गीता, मुकुल और रवि एक व्यवसाय में क्रमशः ₹440, ₹390 और ₹830 का निवेश करते हैं। यदि वे ₹760 के लाभ को विभाजित करते हैं, तो रवि को प्राप्त लाभ का हिस्सा ज्ञात कीजिए।

(1) ₹530

(2) ₹280

(3) ₹380 ✔

(4) ₹430

Q.119 Three solid iron cubes of edge 5 cm, 3 cm, and 7 cm are melted together to make a new solid cube. Due to improper handling, 152 cm^3 of the melted material is lost. Find the length of the longest diagonal of the new cube.

5 cm, 3 cm और 7 cm किनारे वाले लोहे के तीन ठोस घनों को एक साथ पिघलाकर एक नया ठोस घन बनाया जाता है। अनुचित प्रबंधन के कारण, पिघली हुई सामग्री का 152 cm^3 नष्ट हो जाता है। नए घन के सबसे लंबे विकर्ण की लंबाई ज्ञात कीजिए।

(1) $6\sqrt{3}$ cm

(2) $7\sqrt{3}$ cm ✔

(3) $8\sqrt{6}$ cm

(4) $5\sqrt{6}$ cm

English Language and Comprehension

Q.120 In the following sentence, replace the highlighted phrase with the most appropriate one-word substitute.

The manager displayed an unwillingness to change his opinion even when presented with evidence.

(1) apathy

(2) arrogance

(3) obstinacy ✔

(4) inertia

Q.121 Rearrange the following segments to form a meaningful sentence. Segment A is the anchor and must remain in the same position.

A. What the evaluation

B. report failed to address was

C. of the proposed model

D. the long-term epistemological implications

(1) ABCD

(2) ADBC

(3) ABDC ✔

(4) ACBD

Q.122 The following sentence is in direct speech. Complete the sentence in indirect speech.
Direct: Neena said, "I have finished my work already."
Indirect: Neena said that ..... .

(1) she finished her work already.
(2) she has finished her work already.
(3) she had been finishing her work already.
(4) she had finished her work already. ✔

Q.123 Select the option that completes the given sentence in indirect speech.
He said that _____ be leaving for the conference the next morning.

(1) he has submitted the final report and will
(2) he has submitted the final report and would
(3) he had submitted the final report and will
(4) he had submitted the final report and would ✔

Q.124 Complete the sentence by choosing the option that has the correct combination to fill the blanks in order, such that the sentence is grammatically correct.
My friend has been working _____ this company _____ 2004, long _____ any of us joined the place.

(1) for / in / after
(2) by / until / after
(3) at / since / before ✔
(4) in / until / before

Q.125 Choose the correct sentence in the form of indirect speech.
The teacher asked, "Why are you late to class today?"

(1) The teacher asked why I am late to class today.
(2) The teacher asked me why am I late to class today.
(3) The teacher asked why I was late to class that day.
(4) The teacher asked why was I late to class that day. ✔

Q.126 Select the most appropriate option that can be used to fill the given blank.
A person who studies weather is known as a/an _____.

(1) Astronomer
(2) Geologist
(3) Meteorologist ✔
(4) Ecologist

Q.127 Choose the correct word to substitute the group of words given below.
A person who loves and collects books

(1) Novelist
(2) Bibliophile ✔
(3) Lexicographer
(4) Calligrapher

QuickSarkari.com | WhatsApp Channel | Telegram: t.me/quick_sarkari

Q.128 In the given question, a statement divided into different segments is given. The first segment is fixed, rearrange the other segments to form a coherent statement.
As the sun dipped below
(A) arduous journey that had fundamentally
(B) shades of crimson and violet, the
(C) lone traveler reflected on the
(D) the horizon, painting the sky in
(E) reshaped his understanding of solitude

(1) ABCDE
(2) CDEBA
(3) BCDEA
(4) DBCAE ✔

Q.129 Complete the sentence by choosing the option that has the correct combination to fill the blanks in order, such that the sentence is grammatically correct.
They must pass _____ our house _____ arrive _____ yours.

(1) by / to / at ✔
(2) near / for / in
(3) of / to / on
(4) on / for / of

Q.130 In the following sentence, replace the highlighted phrase with the most appropriate one-word substitution.
Her success was attributed to her ability to adapt quickly to changing circumstances.

(1) dexterity
(2) agility
(3) resilience ✔
(4) versatility

Q.131 The following sentence is given in indirect speech. Choose the correct sentence that expresses the same meaning in direct speech:
Ravi said that he would visit his friend the next day.

(1) Ravi said, “I visit my friend tomorrow.”
(2) Ravi said, “I will visit my friend tomorrow.” ✔
(3) Ravi said, “He will visit his friend tomorrow.”
(4) Ravi said, “I would visit my friend the next day.”

Q.132 Choose the correct sentence in the form of direct speech.
She said that she could not attend the meeting because she was feeling unwell.

(1) She said, "I cannot attend the meeting because I was unwell.”
(2) She said, "I may not attend the meeting because I was feeling unwell."
(3) She said, "I cannot attend the meeting because I am feeling unwell." ✔
(4) She said, "I could not attend the meeting because I was feeling unwell."

Q.133 Select the most appropriate option to fill in the blank.
The manager, with all his team members, _____ in the conference room.

(1) is ✔
(2) were
(3) are
(4) has

Q.134 Which of the following sentences is in passive voice?

(1) The assignments were submitting by the students before the deadline.
(2) The results were announce by the manager at the end of the meeting.
(3) The article was revised by the editor before the deadline. ✔
(4) The faulty circuit was repair by the technician in less than an hour.

Q.135 Rearrange the following segments to form a meaningful sentence.
A. substantiate
B. at no stage
C. the preliminary hypothesis
D. did the available evidence

(1) BADC
(2) DBAC
(3) BDAC ✔
(4) DABC

Q.136 Choose the word that best completes the sentence given below.
I was really disturbed that the police officer was making only a very _____ investigation; I thought it was a serious issue that needed a lot more care and detailed attention.

(1) exhaustive
(2) ubiquitous
(3) cacophonous
(4) perfunctory ✔

Q.137 In the given question, a statement divided into different segments is given. The first segment is fixed. Rearrange the remaining segments to form a coherent sentence.
(A) Since the initiative lacked clear performance indicators,
(B) progress remained difficult to evaluate,
(C) resulting in inconsistent implementation,
(D) across regional units

(1) ADCB
(2) ABCD ✔
(3) ACBD
(4) ABDC

Q.138 Complete the sentence with the most suitable word.
She plans to buy ___ apartment in the city before the end of the year.

(1) an ✔
(2) no word needed
(3) the
(4) a

Q.139 Select the most appropriate article to fill in the blank. If no article is needed, select 'No article required'.
We had _____ one-hour delay at the airport because of bad weather.

(1) the
(2) a ✔
(3) an
(4) No article required

Q.140 Identify the INCORRECTLY spelt word from the highlighted words in the given sentence and select the option that rectifies it.
The transcendentalist's writings depict an ecstatic union with nature, wherein the self dissolves into the infinitte cosmos.

(1) dissolevs
(2) infinite ✔
(3) transendentalist's
(4) ecstetic

Q.141 Select the most appropriate antonym of the underlined word in the given sentence.
She was fed up with their dogmatic attitude.

(1) imperceptible
(2) terminable
(3) abominable
(4) pliable ✔

Q.142 Identify the ANTONYM of the highlighted word.
The philosopher's writing is intentionally elliptical, leaving much unsaid.

(1) Dense
(2) Abstain
(3) Ambitious
(4) Explicit ✔

Q.143 In the following question, a statement has been given with highlighted text. You are required to replace the text with correct idiom given in the options.
The start up led the way as a pioneer in artificial intelligence, developing technologies that reshaped the industry.

(1) by leaps and bounds
(2) spread like fire
(3) blazed a trial ✔
(4) cut no ice

Q.144 Choose the correct proverbial option to substitute the underlined word segment in the given sentence.
After months of negotiations and what seemed like a clear path to success, they were confident the deal would go through, but as their lawyer cautiously reminded them, unexpected obstacles could still arise at any moment, potentially preventing them from reaching the final agreement.

(1) the mills of God grind slowly but surely
(2) **there's many a slip twixt cup and lip ✔**
(3) a drowning man will clutch at a straw
(4) an oak is not felled at one stroke

Q.145 Choose the most appropriate antonym of the word "visible" given in the sentence.
The outline of the ship was clearly visible.

(1) distant
(2) sharp
(3) **hidden ✔**
(4) bright

Q.146 Select the sentence which has the INCORRECTLY spelt word.

(1) The historian provided a comprehensive analysis of the ancient civilisation.
(2) **The team worked dilegently to meet the agreed deadline. ✔**
(3) The treaty aimed to promote coexistence between the rival nations.
(4) The oppression of minority groups remains a pressing global issue.

Q.147 Identify the antonym of the bold word of the sentence:
A diligent gardener tends to their plants with consistent care, ensuring a healthy bloom.

(1) Boastful
(2) Notorious
(3) Assiduous
(4) **Inert ✔**

Q.148 Select the correct option that has the same meaning as that of the underlined proverb in the given sentence.
He believes that actions speak louder than words, so he shows his love through kind deeds.

(1) promises should be kept
(2) **deeds are more powerful than speech ✔**
(3) words don't matter at all
(4) loud actions get more attention

Q.149 Select the most appropriate idiom that can substitute the underlined segment in the given sentence.
He invested all his money in one startup, by completely relying on a single plan for success.

(1) beating around the bush
(2) taking the bull by the horns
(3) **putting all his eggs in one basket ✔**
(4) burning the midnight oil

Q.150 Identify the suitable title for the passage.

(1) Commercial Expansion and Urban Infrastructure Planning

(2) Conflict between Professional Practice and Design Priorities

(3) Traditional Building Methods in Rural Environments

(4) Evolution of Architectural Thought through Field Engagement ✔

Q.151 Identify the central theme of the passage.

(1) Architectural firms often ignore environmental regulations.

(2) Community participation improves construction speed and cost. ✔

(3) Professional expertise must be re-evaluated in changing contexts.

(4) Rural construction methods are more efficient than urban systems.

Q.152 Mention the facts given in the passage.

(1) Ananya engaged in three distinct collaborative architectural activities. ✔

(2) Ananya engaged in four distinct collaborative architectural activities.

(3) Ananya engaged in five distinct collaborative architectural activities.

(4) Ananya engaged in two distinct collaborative architectural activities.

Q.153 Identify the structure of the passage.

(1) Critical evaluation of commercial architectural practices

(2) Descriptive account of architectural techniques and materials

(3) Comparative analysis between urban and rural construction systems

(4) Sequential progression from dissatisfaction to engagement and reinterpretation ✔

Q.154 Identify the tone of the passage.

(1) Reflective and developmental throughout experiential progression ✔

(2) Neutral and descriptive throughout environmental observation

(3) Critical and argumentative throughout institutional critique

(4) Analytical and detached throughout professional reflection

---

Q.155 Which of the following would be the most suitable title for the passage?

(1) Architectural Innovations and Urban Planning in Classical Civilisations

(2) Political Gatherings and Trade Ceremonies in Early Roman Society

(3) An Evening Banquet and Dionysian Celebration in Ancient Pompeii ✔

(4) Military Rituals and Religious Warfare in the City of Pompeii

---

Q.156 Which of the following best describes the structure of the passage?

(1) The passage explains historical wars before analysing political consequences carefully

(2) The passage compares architectural styles from multiple ancient Mediterranean regions

(3) The passage introduces scientific discoveries followed by archaeological field evidence

(4) The passage narrates an event before describing artistic and cultural details ✔

Q.157 According to the passage, which of the following statements is correct?

(1) The painted walls displayed scenes of political assemblies and trade activities

(2) The frescoes depicted followers associated with the wine god Dionysus ✔

(3) The hosts arranged the celebration during the early hours of morning

(4) The banquet guests gathered inside a temple dedicated to Roman soldiers

---

Q.158 Which of the following best describes the tone of the passage?

(1) Critical and argumentative with disapproval of aristocratic Roman lifestyles

(2) Analytical and technical with focus on archaeological excavation methods

(3) **Vivid and descriptive with admiration for artistic and cultural richness ✔**

(4) Humorous and exaggerated with playful mockery of ancient celebrations

Q.159 Which of the following best summarises the passage?

(1) **The passage describes a luxurious Pompeian banquet enriched by Dionysian art ✔**

(2) The passage discusses architectural damage caused by natural disasters in Italy

(3) The passage analyses the economic trade systems operating within ancient Pompeii

(4) The passage explains how Roman armies organised military celebrations in cities

Hindi Language and Comprehension

Q.160 निम्नलिखित वाक्य में उचित क्रिया का प्रयोग कर वाक्य पूर्ण करें:- कहानी को चाहिए

(1) पीना

(2) चलाना

(3) **पढ़ना ✔**

(4) तब

Q.161 निम्नलिखित वाक्य को 'अधिकरण कारक' द्वारा पूर्ण करें- ब्रिटिश प्रचार के बावजूद, महाराष्ट्र के लोगों के मन ___ अंग्रेजों के 'सभ्यता मिशन' की वैधता ____ विश्वास नहीं बन पाया।

(1) में, का

(2) से, को

(3) पर, से

(4) **में, पर ✔**

Q.162 'जंगल में रोना' मुहावरे का सही अर्थ होगा -

(1) **व्यर्थ विलाप करना ✔**

(2) जख्म ताज़ा होना

(3) हठ पकड़ना

(4) कष्ट में और कष्ट देना

Q.163 नीचे दिए गए वाक्य खंडों को सही क्रम में व्यवस्थित कीजिए –

1. तीन रुपये
2. इस घर
3. पड़ता था
4. का किराया
5. महीना देना

(1) 15324

(2) 24315

(3) 53241

(4) **24153 ✔**

Q.164 उचित विशेषण शब्द का प्रयोग कर वाक्य को पूर्ण करें- पिता की मृत्यु का मुझे दुःख हुआ।

(1) कठिन

(2) कम

(3) **बहुत ✔**

(4) भारी

Q.165 रमेश अपने कमरे के अंदर बैठा है। वाक्य में ..... क्रिया-विशेषण है।
दिए गए विकल्पों में से क्रिया-विशेषण के उचित भेद को चुन कर वाक्य पूर्ण करें -

(1) **स्थानवाचक ✔**

(2) रीतिवाचक

(3) कालवाचक

(4) परिमाणवाचक

Q.166 दिए गए वाक्य में रिक्त स्थान के लिए उपयुक्त क्रिया चुनें।
आज तो गाने का रंग खूब ..... ।

(1) **जमा ✔**

(2) भरा

(3) हटा

(4) लगा

Q.167 ..... ! हमें सदैव सत्य बोलना चाहिए।
उचित कारक एवं उससे सम्बंधित चिह्न वाले विकल्प को चुनकर कर निम्नलिखित वाक्य पूर्ण करें-

(1) **मित्रों - संबोधन कारक ✔**

(2) मित्रों - अधिकरण कारक

(3) मित्रों - संप्रदान कारक

(4) मित्रों - संबंध कारक

Q.168 'वह सोहन _____ मिठाई लाई है।' वाक्य पूर्ण करने के लिए उपयुक्त कारक शब्द चुनें।

(1) को लेकर

(2) का

(3) **के लिए ✔**

(4) को

Q.169 'निरभिमान' के विलोम शब्द से दिये गये वाक्य का रिक्त स्थान पूर्ण करें-- नये पड़ोसी न केवल असभ्य और धनी हैं, अपितु धन- ..... और अहंकारी भी हैं।

(1) संग्रही

(2) **अभिमानी ✔**

(3) स्वाभिमानी

(4) लोलुप

Q.170 'वह स्थान जहाँ जाँता या चक्की गड़ी हो' वाक्यांश के लिए सार्थक शब्द होगा -

(1) जंतरी

(2) जंजाल

(3) **जँतसार ✔**

(4) जंजीरी

Q.171 निम्नलिखित वाक्यांश के लिए सार्थक शब्द बताइए।
'जो सहन करने में समर्थ हो'

(1) सहनशील ✔
(2) स्वार
(3) चंचल
(4) क्रोधी

Q.172 'लकीर का फकीर होना' मुहावरे का अर्थ क्या है?

(1) दया करना
(2) अंधविश्वासी होना ✔
(3) नरमी से काम करना
(4) भाग्य खराब होना

Q.173 दिए गए वाक्य में उचित गुणवाचक विशेषण का चयन करके रिक्त स्थान की पूर्ति करें- सूर्य की किरणें-------- आभा से युक्त हैं।

(1) इस
(2) बहुत
(3) दसगुनी
(4) सुनहरी ✔

Q.174 दिए गए वाक्य में रिक्त स्थान के लिए उपयुक्त विशेषण चुनें।
तुम कल ..... बाजार नहीं जाओगे।

(1) कायर
(2) दैनिक ✔
(3) तेज़
(4) लंबे

Q.175 रिक्त स्थान के लिए उपयुक्त कारक का चयन दिए गए विकल्पों में से करें- हम एक बच्चे.....मोटर चलाने की स्वतंत्रता नहीं दे सकते हैं।

(1) की
(2) को ✔
(3) के
(4) से

Q.176 निम्नलिखित शब्दों को सही क्रम में लगाकर वाक्य बनाइये उद्देश्य दूसरों के/ बनाना है / हमारे जीवन का/जीवन को खुशहाल ।

(1) बनाना है जीवन को खुशहाल हमारे जीवन का उद्देश्य दूसरों के ।
(2) बनाना है जीवन को खुशहाल उद्देश्य दूसरों के हमारे जीवन का ।
(3) हमारे जीवन का उद्देश्य दूसरों के जीवन को खुशहाल बनाना है । ✔
(4) बनाना है हमारे जीवन का उद्देश्य दूसरो के जीवन को खुशहाल ।

Q.177 दिए गए शब्दों को सही वाक्य क्रम में व्यवस्थित कीजिए -
1. बढ़ता जा
2. उनका
3. रहा था
4. प्रकाश

(1) 3241
(2) 2413 ✔
(3) 1342
(4) 1432

QuickSarkari.com | WhatsApp Channel | Telegram: t.me/quick_sarkari

Q.178 उचित क्रिया शब्द से वाक्य पूर्ण करेंवह अपना सिर _____है

(1) खुजेगी

(2) खुजलाएगी

(3) खुजलाता ✔

(4) खोजेगा

Q.179 रेखांकित कारक चिह्न के आधार पर कारक के उचित भेद का चुनाव करें- विद्वान ने सभा में ज्ञान का प्रकाश फैलाया। वाक्य में ..... कारक है।

(1) संबोधन कारक

(2) अपादान कारक

(3) कर्ता कारक

(4) अधिकरण कारक ✔

Q.180 'जल थल एक होना' मुहावरे का सही अर्थ होगा -

(1) बहुत क्रोधित होना

(2) हानि पहुँचाना

(3) किसी के अहित में अपना लाभ करना

(4) खूब वर्षा होना ✔

Q.181 निम्नलिखित में से वर्तनी की दृष्टि से कौन-सा वाक्य शुद्ध है?

(1) ज्योतिस्ना में नहाई धरती मनमोहक लग रही है।

(2) जोत्सना का दृश्य मन को भा गया।

(3) पेड़ों पर ज्योत्स्ना गिर रही है। ✔

(4) आज रात की ज्योत्सना बहुत सुंदर है।

Q.182 'चंदन की चुटकी भली गाड़ी भरा न काठ' - लोकोक्ति के उपयुक्त अर्थ का चयन कीजिए।

(1) कुप्रबंध वस्तु की अधिक सुरक्षा

(2) महत्त्व की वस्तु थोड़ी ही अच्छी है ✔

(3) मजबूरी में व्यक्ति अनचाहा कार्य करता है

(4) उत्पत्ति क्षेत्र में उसी वस्तु का आयात

Q.183 'बहरा सो गहरा' लोकोक्ति का क्या अथ है?

(1) चुप्पा बहुत चालक होता है ✔

(2) बड़े से छोटा बढ़ गया

(3) काम किया तो अवश्य

(4) नई चीज़ की कदर सब करते है

Q.184 'जी का बैरी जी' लोकोक्ति का सही अर्थ है –

(1) यहाँ सब कुछ विचित्र है ।

(2) जिसकी करनी, उसी को फल मिलता है ।

(3) मनुष्य ही मनुष्य का शत्रु है । ✔

(4) मनुष्य जीवन नाशवान है ।

Q.185 प्रस्तुत लोकोक्ति का उपयुक्त अर्थ चुनिए।
'आग लगने पे कुआँ खोदना'

(1) आवश्यकता पड़ने से पहले कुछ न करना । ✔
(2) जो व्यक्ति अपने काम में सावधानी बरतता है।
(3) जब कोई व्यक्ति योजना बनाकर कार्य करे।
(4) जो व्यक्ति समय से पहले तैयारी कर लेता है।

Q.186 निम्नलिखित वाक्य में रेखांकित शब्द के लिए उपयुक्त विलोम शब्द चुने।
कबीर ने निर्गुण ईश्वर की उपासना की है।

(1) प्राचीन
(2) सगुण ✔
(3) नवगुण
(4) सर्वगुण

Q.187 निम्नलिखित विकल्प में "अपशकुन" का विलोम शब्द क्या है?

(1) शकुन ✔
(2) श्कुन
(3) शाकुन
(4) शकून

Q.188 निम्नलिखित वाक्य में रेखांकित शब्द के लिए उपयुक्त विलोम शब्द चुनें।
तुम्हें मेहमानों का सत्कार करना चाहिए था।

(1) समर्थ
(2) सम्मान
(3) आवभगत
(4) तिरस्कार ✔

Q.189 निम्नलिखित लोकोक्ति का अर्थ बताएं - 'आँख के अंधे नाम नयन -सुख'

(1) गुण के विपरीत नाम ✔
(2) भविष्य किसने देखा
(3) अपनी ही शक्ति में विश्वास करना
(4) गलत काम बहुत दिन नहीं चलता

Q.190 उपयुक्त गद्यांश का उचित शीर्षक होगा-

(1) गोस्वामी की वाक्य रचना
(2) तुलसी की काव्य कला ✔
(3) मर्यादा का उल्लंघन
(4) ईमानदारी का अस्तित्व

Q.191 तुलसीदास जी ने केवल एक भद्दी परम्परा का अनुसरण किया और वह है:

(1) प्रेम और श्रृंगार का वर्णन
(2) रचना नैपुण्य का प्रदर्शन
(3) शब्द चमत्कार का प्रदर्शन
(4) लम्बे सांगरूपक बांधना ✔

Q.192 गोस्वामी जी के अलंकार वर्णन की क्या विशेषता है?

(1) वाक्य रचना करना

(2) रचना कौशल दिखाना

(3) भावों तथा तथ्यों की व्यंजना करना ✔

(4) चमत्कार का प्रदर्शन करना

Q.193 गोस्वामी जी की वाक्य रचना में क्या विशिष्टता है?

(1) सांगरूपकों से भरी पड़ी है

(2) रसों की सम्यक व्यंजना

(3) भट्टी परम्परा का अनुसरण

(4) वाक्य रचना प्रौढ़ और सुव्यवस्थित है ✔

Q.194 तुलसीदास जी के श्रृंगार वर्णन की प्रमुख विशेषता क्या है?

(1) मर्यादा का कहीं उल्लंघन नहीं किया ✔

(2) रचना-नैपुण्य का भद्दा प्रदर्शन

(3) अलंकारों का सभिप्राय प्रयोग किया

(4) सर्वत्र भाषा का प्रयोग

Q.195 उपयुक्त गद्यांश का शीर्षक बताएं।

(1) पी.एम.एम.वाई.और व्यापार

(2) भारतीय ऋण का अवमूल्यन

(3) मुद्रा योजना: दीर्घकालीन प्रभाव ✔

(4) योजनाओं का क्रियान्वयन एवं ह्रास

Q.196 मुद्रा योजना ने भारत के गैर-कॉर्पोरेट, गैर-कृषि लघु और सूक्ष्म उद्यमों को कितने रुपए तक का ऋण देती है।

(1) 18 लाख रुपए

(2) 20 लाख रुपए

(3) 15 लाख रुपए

(4) 10 लाख रुपए ✔

Q.197 मुद्रा योजना की कुल लाभार्थियों में से महिला उद्यमी का प्रतिशत कितना है?

(1) 72 प्रतिशत

(2) 69 प्रतिशत ✔

(3) 70 प्रतिशत

(4) 68 प्रतिशत

Q.198 ऋणों को किस रूप में वर्गीकृत नहीं किया गया है?

(1) तरुण (5 लाख से 10 लाख रुपए से ऊपर)

(2) शिशु (रु. 50,000 तक)

(3) युवा (50 लाख से ऊपर) ✔

(4) किशोर (रु. 50,000 से रु. 5 लाख से ऊपर)

Q.199 2023 तक कुल स्वीकृत ऋणों में से एस.सी./एस.टी. और ओ.बी.सी. श्रेणियों के उद्यमियों का प्रतिशत है?

(1) 39 प्रतिशत

(2) 71 प्रतिशत

(3) 61 प्रतिशत

(4) 51 प्रतिशत ✔

Answer Key / उत्तर कुंजी

1	2	3	4	5	6	7	8	9	10	11	12	13	14	15
4	3	2	4	4	4	3	2	3	4	3	4	3	3	1
16	17	18	19	20	21	22	23	24	25	26	27	28	29	30
2	3	1	4	1	3	1	2	3	1	3	3	2	4	3
31	32	33	34	35	36	37	38	39	40	41	42	43	44	45
1	2	2	1	4	3	4	1	4	3	3	3	4	3	1
46	47	48	49	50	51	52	53	54	55	56	57	58	59	60
4	2	3	4	1	4	4	4	4	4	4	2	1	3	4
61	62	63	64	65	66	67	68	69	70	71	72	73	74	75
4	4	3	4	4	1	1	2	2	1	3	1	3	2	4
76	77	78	79	80	81	82	83	84	85	86	87	88	89	90
4	2	4	4	2	3	4	1	4	1	4	1	1	2	2
91	92	93	94	95	96	97	98	99	100	101	102	103	104	105
1	1	3	4	3	3	3	4	4	3	2	2	1	2	3
106	107	108	109	110	111	112	113	114	115	116	117	118	119	120
1	2	4	3	4	1	2	2	4	3	2	1	3	2	3
121	122	123	124	125	126	127	128	129	130	131	132	133	134	135
3	4	4	3	4	3	2	4	1	3	2	3	1	3	3
136	137	138	139	140	141	142	143	144	145	146	147	148	149	150
4	2	1	2	2	4	4	3	2	3	2	4	2	3	4
151	152	153	154	155	156	157	158	159	160	161	162	163	164	165
2	1	4	1	3	4	2	3	1	3	4	1	4	3	1
166	167	168	169	170	171	172	173	174	175	176	177	178	179	180
1	1	3	2	3	1	2	4	2	2	3	2	3	4	4
181	182	183	184	185	186	187	188	189	190	191	192	193	194	195
3	2	1	3	1	2	1	4	1	2	4	3	4	1	3
196	197	198	199											
4	2	3	4											

QuickSarkari.com | WhatsApp Channel | Telegram: t.me/quick_sarkari

Quick Sarkari

Thank you for studying with QuickSarkari!

Get the latest Sarkari Naukri notifications, admit cards, results, answer keys and free previous-year papers first - follow us on WhatsApp and Telegram.

Visit www.quicksarkari.com

Join our WhatsApp Channel

https://whatsapp.com/channel/0029VaxxbrREquiPoXTWM229

Join our Telegram Channel

https://t.me/quick_sarkari

Share this PDF with your friends preparing for DSSSB exams.