DSSSB PREVIOUS YEAR PAPER WITH ANSWER KEY

DSSSB Assistant Superintendent

5 July 2026 · Shift 2

डीएसएसएसबी सहायक अधीक्षक – 5 जुलाई 2026, शिफ्ट 2 का प्रश्न पत्र, उत्तर कुंजी सहित

200	120 min	1 / −0.25	EN + HI
Questions / प्रश्न	Duration / समय	Marks per Q / अंक	Language / भाषा

Sections: General Intelligence and Reasoning Ability, General Awareness, Arithmetical and Numerical Ability, English Language and Comprehension, Hindi Language and Comprehension

INSIDE THIS PDF / इस PDF में

Question Paper in English + Hindi with Answer Key (correct option marked in green) + answer table Page 2–42
प्रश्न पत्र अंग्रेज़ी + हिंदी में, उत्तर कुंजी सहित (सही विकल्प हरे रंग में) + उत्तर तालिका

HOW TO USE THIS PAPER / इस पेपर का उपयोग कैसे करें

1. Attempt the paper first as a timed online mock test (link below).
   पहले नीचे दिए लिंक से इसे टाइमर के साथ ऑनलाइन मॉक टेस्ट के रूप में हल करें।
2. Check your score, section-wise analysis and solutions online.
   ऑनलाइन अपना स्कोर, खंड-वार विश्लेषण और हल देखें।
3. Use this PDF for revision. Correct answers are shown in green.
   दोहराने के लिए इस PDF का उपयोग करें। सही उत्तर हरे रंग में दिए गए हैं।

Attempt this paper as a FREE online mock test

इस पेपर को फ्री ऑनलाइन मॉक टेस्ट के रूप में हल करें – टाइमर, स्कोर और हल के साथ

https://quicksarkari.com/dsssb-assistant-superintendent-05-july-2026-shift-2-mock-test/

All DSSSB Assistant Superintendent papers and mock tests: **quicksarkari.com/dsssb-mock-test/#assistant-superintendent**

Join WhatsApp Channel | Join Telegram Channel

DSSSB Assistant Superintendent – Question Paper (English + Hindi)

DSSSB सहायक अधीक्षक – प्रश्न पत्र (अंग्रेज़ी + हिंदी)

Exam held on 5 July 2026, Shift 2 · 200 questions · correct answers marked ✔ in green
परीक्षा तिथि 5 जुलाई 2026, शिफ्ट 2 · 200 प्रश्न · सही उत्तर हरे रंग में ✔ से चिह्नित

> The official paper for this shift was in English. The Hindi version of each question is a translation prepared by QuickSarkari; the language-section questions are shown as asked.
> इस शिफ्ट का आधिकारिक प्रश्न पत्र अंग्रेज़ी में था। प्रत्येक प्रश्न का हिंदी संस्करण QuickSarkari द्वारा तैयार किया गया अनुवाद है; भाषा खंड के प्रश्न मूल रूप में दिए गए हैं।

General Intelligence and Reasoning Ability

Q.1 Which of the following letter-clusters should replace # and % so that the pattern and relationship followed between the letter-cluster pair on the left side of :: is the same as that on the right side of :: ?
: TVQ :: GID : %

निम्नलिखित में से कौन-से अक्षर-समूह # और % का स्थान लेने चाहिए ताकि :: के बाईं ओर के अक्षर-समूह युग्म के बीच जिस पैटर्न और संबंध का अनुसरण किया गया है, वही :: के दाईं ओर भी हो?
: TVQ :: GID : %

(1) # = MOK , % = HJG
(2) # = NOK , % = GJE
(3) # = OPK , % = GJH
(4) # = PRM , % = KMH ✔

Q.2 This question is based on the five, three-digit numbers given below.
(Left) 457 658 364 259 419 (Right)
(Example- 697 – First digit = 6, second digit = 9 and third digit = 7)
What will be the resultant if the second digit of the second highest number is added to the third digit of the lowest number?

यह प्रश्न नीचे दी गई पाँच, तीन-अंकीय संख्याओं पर आधारित है।
(बाएँ) 457 658 364 259 419 (दाएँ)
(उदाहरण- 697 – पहला अंक = 6, दूसरा अंक = 9 और तीसरा अंक = 7)
यदि दूसरी सबसे बड़ी संख्या के दूसरे अंक को सबसे छोटी संख्या के तीसरे अंक में जोड़ा जाए, तो परिणाम क्या होगा?

(1) 12
(2) 14 ✔
(3) 13
(4) 11

Q.3 In a certain code language, '561%' is coded as 'GOVT' and '65$1' is coded as 'VOTE'. What is the code for '$' in the given code language?

एक निश्चित कूट भाषा में, '561%' को 'GOVT' लिखा जाता है और '65$1' को 'VOTE' लिखा जाता है। उस कूट भाषा में '$' के लिए क्या कूट है?

(1) E ✔
(2) T
(3) V
(4) O

Q.4 This question is based on the following words.
LATE, POUR, NEAT, THIN In each of the words, each vowel is changed to the letter following it in the English alphabetical order and each consonant is changed to the letter preceding it in the English alphabetical order. In how many letter-clusters thus formed, will no vowel appear?

यह प्रश्न निम्नलिखित शब्दों पर आधारित है।
LATE, POUR, NEAT, THIN प्रत्येक शब्द में, प्रत्येक स्वर को अंग्रेज़ी वर्णमाला क्रम में उसके बाद आने वाले अक्षर से बदल दिया जाता है और प्रत्येक व्यंजन को अंग्रेज़ी वर्णमाला क्रम में उससे पहले आने वाले अक्षर से बदल दिया जाता है। इस प्रकार बने कितने अक्षर-समूहों में कोई स्वर नहीं आएगा?

(1) One / एक
(2) **Three / तीन ✔**
(3) Two / दो
(4) None / कोई नहीं

Q.5 Each of P, Q, R, S, T, U, and V has a scheduled event on a different day of the week from Monday to Sunday. P has an event on Tuesday. Only two people have events between P and T. V has an event after Q, but before S. R's event is immediately before U. There are three events between V and U. Which day does S have an event?

P, Q, R, S, T, U और V में से प्रत्येक का सोमवार से रविवार तक सप्ताह के एक अलग दिन एक कार्यक्रम निर्धारित है। P का कार्यक्रम मंगलवार को है। P और T के बीच केवल दो व्यक्तियों के कार्यक्रम हैं। V का कार्यक्रम Q के बाद, लेकिन S से पहले है। R का कार्यक्रम U से ठीक पहले है। V और U के बीच तीन कार्यक्रम हैं। S का कार्यक्रम किस दिन है?

(1) Sunday / रविवार
(2) **Thursday / गुरुवार ✔**
(3) Friday / शुक्रवार
(4) Monday / सोमवार

Q.6 Which of the following letter-clusters should replace # and % so that the pattern and relationship followed between the letter-cluster pair on the left side of :: is the same as that on the right side of :: ?
: ONQ :: LKN : %

निम्नलिखित में से कौन-से अक्षर-समूह # और % का स्थान लेने चाहिए ताकि :: के बाईं ओर के अक्षर-समूह युग्म के बीच जिस पैटर्न और संबंध का अनुसरण किया गया है, वही :: के दाईं ओर भी हो?
: ONQ :: LKN : %

(1) **# = QPS , % = JIL ✔**
(2) # = QUV , % = JLP
(3) # = RQU , % = KPM
(4) # = RUS , % = KON

Q.7 Seven people, A, B, C, D, E, F and G are sitting in a straight line, facing north (but not necessarily in the same order). C sits third to the right of A. Only one person sits to the left of B. Only three people sit between G and E. No one sits to the right of E. D is the immediate neighbour of both C and F. How many people sit to the left of D?

सात व्यक्ति, A, B, C, D, E, F और G एक सीधी पंक्ति में उत्तर की ओर मुख करके बैठे हैं (परंतु आवश्यक नहीं कि इसी क्रम में हों)। C, A के दाईं ओर तीसरे स्थान पर बैठा है। B के बाईं ओर केवल एक व्यक्ति बैठा है। G और E के बीच केवल तीन व्यक्ति बैठे हैं। E के दाईं ओर कोई नहीं बैठा है। D, C और F दोनों का निकटतम पड़ोसी है। D के बाईं ओर कितने व्यक्ति बैठे हैं?

(1) Three / तीन
(2) **Four / चार ✔**
(3) One / एक
(4) Two / दो

Q.8 In a certain code language, 'A + B' means 'A is the mother of B', 'A – B' means 'A is the brother of B', 'A × B' means 'A is the wife of B' and 'A ÷ B' means 'A is the father of B'.
How is M related to Q if 'M + N − O ÷ P × Q'?

एक निश्चित कूट भाषा में, 'A + B' का अर्थ है 'A, B की माता है', 'A – B' का अर्थ है 'A, B का भाई है', 'A × B' का अर्थ है 'A, B की पत्नी है' और 'A ÷ B' का अर्थ है 'A, B का पिता है'।
यदि 'M + N − O ÷ P × Q' है, तो M, Q से किस प्रकार संबंधित है?

(1) Wife's father's sister / पत्नी के पिता की बहन
(2) Wife's mother's sister / पत्नी की माता की बहन
(3) Wife's mother's mother / पत्नी की माता की माता
(4) **Wife's father's mother / पत्नी के पिता की माता ✔**

Q.9 Which of the following letter-clusters should replace # and % so that the pattern and relationship followed between the letter-cluster pair on the left side of :: is the same as that on the right side of ::?
: YNQ :: VSN : %

निम्नलिखित में से कौन-से अक्षर-समूह # और % का स्थान लेने चाहिए ताकि :: के बाईं ओर के अक्षर-समूह युग्म के बीच जिस पैटर्न और संबंध का अनुसरण किया गया है, वही :: के दाईं ओर भी हो?
: YNQ :: VSN : %

(1) # = PCH, % = BIT
(2) # = MHE, % = PCH
(3) # = SXK, % = MHE
(4) **# = BIT, % = SXK ✔**

Q.10 Refer to the following letter series and answer the question. Counting to be done from left to right.
(Left) T B E M U R Y S A C I Z W Q D O F A H G K (Right)
How many such consonants are there, each of which is immediately preceded by a vowel and also immediately followed by a vowel?

निम्नलिखित अक्षर श्रृंखला को देखिए और प्रश्न का उत्तर दीजिए। गिनती बाएँ से दाएँ की जानी है।
(बाएँ) T B E M U R Y S A C I Z W Q D O F A H G K (दाएँ)
ऐसे कितने व्यंजन हैं, जिनमें से प्रत्येक के ठीक पहले एक स्वर है और ठीक बाद में भी एक स्वर है?

(1) One / एक
(2) **Three / तीन ✔**
(3) Two / दो
(4) None / कोई नहीं

Q.11 Each vowel in the word PANDEMIC is changed to the letter immediately following it in the English alphabetical order and each consonant is changed to the letter immediately preceding it in the English alphabetical order. Which of the following letters will appear exactly twice in the group of letters thus formed?

शब्द PANDEMIC में प्रत्येक स्वर को अंग्रेज़ी वर्णमाला क्रम में उसके ठीक बाद वाले अक्षर से बदल दिया जाता है और प्रत्येक व्यंजन को अंग्रेज़ी वर्णमाला क्रम में उसके ठीक पहले वाले अक्षर से बदल दिया जाता है। इस प्रकार बने अक्षरों के समूह में निम्नलिखित में से कौन-सा अक्षर ठीक दो बार आएगा?

(1) C
(2) **B ✔**
(3) O
(4) M

Q.12 Refer to the following series and answer the question that follows. Counting to be done from left to right only. (Left) B K W T Y ? & P = A % E K @ V X U # R Y (Right)
How many such letters are there, each of which is immediately preceded by a symbol and also immediately followed by a symbol?
निम्नलिखित श्रृंखला को देखिए और उसके बाद दिए गए प्रश्न का उत्तर दीजिए। गिनती केवल बाएँ से दाएँ की जानी है।
(बाएँ) B K W T Y ? & P = A % E K @ V X U # R Y (दाएँ)
ऐसे कितने अक्षर हैं, जिनमें से प्रत्येक के ठीक पहले एक प्रतीक है और ठीक बाद में भी एक प्रतीक है?

(1) Three / तीन
(2) Two / दो ✔
(3) Four / चार
(4) One / एक

Q.13 In a certain code language, A+ B means 'A is the daughter of B'
A @ B means 'A is the father of B'
A # B means 'A is the son of B'
A ÷ B means ' A is the sister of B'
Based on the above, how is M related to U if 'M#I@N+K÷U '?
एक निश्चित कूट भाषा में, A+ B का अर्थ है 'A, B की पुत्री है'
A @ B का अर्थ है 'A, B का पिता है'
A # B का अर्थ है 'A, B का पुत्र है'
A ÷ B का अर्थ है ' A, B की बहन है'
उपर्युक्त के आधार पर, यदि 'M#I@N+K÷U ' है, तो M, U से किस प्रकार संबंधित है?

(1) Son / पुत्र
(2) Father / पिता
(3) Sister's son / बहन का पुत्र ✔
(4) Brother / भाई

Q.14 Each of V, W, X, Y, Z, P and R has an exam on a different day of a week, starting from Monday and ending on Sunday of the same week.
No one has the exam before V. Only three people have the exam between V and X. Only one person has the exam between X and P. R has the exam on Wednesday. W has the exam on one of the days after Z but on one of the days before Y. On which day of the week does Z have the exam?
V, W, X, Y, Z, P और R में से प्रत्येक की परीक्षा एक ही सप्ताह के सोमवार से शुरू होकर रविवार को समाप्त होने वाले सप्ताह के एक अलग दिन है।
V से पहले किसी की परीक्षा नहीं है। V और X के बीच केवल तीन व्यक्तियों की परीक्षा है। X और P के बीच केवल एक व्यक्ति की परीक्षा है। R की परीक्षा बुधवार को है। W की परीक्षा Z के बाद के दिनों में से किसी एक दिन, लेकिन Y से पहले के दिनों में से किसी एक दिन है।
Z की परीक्षा सप्ताह के किस दिन है?

(1) Thursday / गुरुवार
(2) Monday / सोमवार
(3) Friday / शुक्रवार
(4) Tuesday / मंगलवार ✔

Q.15 Each vowel in the word CRAYONS is changed to the letter immediately following it in the English alphabetical order and each consonant is changed to the letter immediately preceding it in the English alphabetical order. Which of the following letters will appear exactly twice in the group of letters thus formed?

शब्द CRAYONS में प्रत्येक स्वर को अंग्रेज़ी वर्णमाला क्रम में उसके ठीक बाद वाले अक्षर से बदल दिया जाता है और प्रत्येक व्यंजन को अंग्रेज़ी वर्णमाला क्रम में उसके ठीक पहले वाले अक्षर से बदल दिया जाता है। इस प्रकार बने अक्षरों के समूह में निम्नलिखित में से कौन-सा अक्षर ठीक दो बार आएगा?

(1) Q
(2) B ✔
(3) M
(4) P

Q.16 Refer to the following series and answer the question (all numbers are single digit numbers only). Counting to be done from left to right.
(Left) 4 5 6 2 4 2 3 2 4 5 5 6 9 7 8 4 3 1 9 8 7 3 7 5 7 1 (Right)
How many such even digits are there each of which is immediately preceded by an odd digit and also immediately followed by an even digit?

निम्नलिखित श्रृंखला को देखिए और प्रश्न का उत्तर दीजिए (सभी संख्याएँ केवल एक-अंकीय संख्याएँ हैं)। गिनती बाएँ से दाएँ की जानी है।
(बाएँ) 4 5 6 2 4 2 3 2 4 5 5 6 9 7 8 4 3 1 9 8 7 3 7 5 7 1 (दाएँ)
ऐसे कितने सम अंक हैं, जिनमें से प्रत्येक के ठीक पहले एक विषम अंक है और ठीक बाद में एक सम अंक है?

(1) 3 ✔
(2) 1
(3) 4
(4) 2

Q.17 Seven friends G, H, I, J, K, C and D are sitting around a circular table facing the center of the table. H is an immediate neighbor of both I and J. J sits third to the left of G. C sits to the immediate left of G. D is not an immediate neighbor of J. Who sits fourth to the left of K?

सात मित्र G, H, I, J, K, C और D एक वृत्ताकार मेज़ के चारों ओर मेज़ के केंद्र की ओर मुख करके बैठे हैं। H, I और J दोनों का निकटतम पड़ोसी है। J, G के बाईं ओर तीसरे स्थान पर बैठा है। C, G के ठीक बाईं ओर बैठा है। D, J का निकटतम पड़ोसी नहीं है।
K के बाईं ओर चौथे स्थान पर कौन बैठा है?

(1) H
(2) J
(3) I
(4) D ✔

Q.18 F, G, H, J, K and L live on six different floors of the same building. The lowermost floor in the building is numbered 1, the floor above it, number 2 and so on till the topmost floor is numbered 6. Only two people live between H and J. Only two people live between F and K. Only one person lives between L and K. L lives on floor numbered 1. H lives above K. How many people live below G?

F, G, H, J, K और L एक ही इमारत की छह अलग-अलग मंज़िलों पर रहते हैं। इमारत की सबसे निचली मंज़िल की संख्या 1 है, उसके ऊपर वाली मंज़िल की संख्या 2 है और इसी प्रकार सबसे ऊपरी मंज़िल की संख्या 6 है। H और J के बीच केवल दो व्यक्ति रहते हैं। F और K के बीच केवल दो व्यक्ति रहते हैं। L और K के बीच केवल एक व्यक्ति रहता है। L मंज़िल संख्या 1 पर रहता है। H, K के ऊपर रहता है। G के नीचे कितने व्यक्ति रहते हैं?

(1) Three / तीन ✔

(2) Two / दो

(3) One / एक

(4) Four / चार

Q.19 Seven boxes G, H, I, J, K, C and D are kept one over the other but not necessarily in the same order. Only three boxes are kept above C. Only one box is kept between D and C. Only three boxes are kept between D and J. J is kept at some place above C. K is kept immediately below J. G is kept at one of the places above I. H is not kept immediately above or below D. Which box is kept at the lowermost position?

सात बक्से G, H, I, J, K, C और D एक के ऊपर एक रखे गए हैं, परंतु आवश्यक नहीं कि इसी क्रम में हों। C के ऊपर केवल तीन बक्से रखे गए हैं। D और C के बीच केवल एक बक्सा रखा गया है। D और J के बीच केवल तीन बक्से रखे गए हैं। J, C के ऊपर किसी स्थान पर रखा गया है। K, J के ठीक नीचे रखा गया है। G, I के ऊपर के स्थानों में से किसी एक पर रखा गया है। H, D के ठीक ऊपर या ठीक नीचे नहीं रखा गया है। सबसे निचले स्थान पर कौन-सा बक्सा रखा गया है?

(1) K

(2) C

(3) H

(4) I ✔

Q.20 In a certain code language, A+ B means 'A is the brother of B'
A – B means 'A is the sister of B'
A x B means 'A is the mother of B'
A ÷ B means 'A is the father of B'
Based on the above, how is T related to N if 'N + Q x T ÷ H'?

एक निश्चित कूट भाषा में, A+ B का अर्थ है 'A, B का भाई है'
A – B का अर्थ है 'A, B की बहन है'
A x B का अर्थ है 'A, B की माता है'
A ÷ B का अर्थ है 'A, B का पिता है'
उपर्युक्त के आधार पर, यदि 'N + Q x T ÷ H' है, तो T, N से किस प्रकार संबंधित है?

(1) Sister's son / बहन का पुत्र ✔

(2) Son's daughter / पुत्र की पुत्री

(3) Sister's daughter / बहन की पुत्री

(4) Son's son / पुत्र का पुत्र

QuickSarkari.com | WhatsApp Channel | Telegram: t.me/quick_sarkari

Q.21 Select the correct mirror image of the given figure when the mirror is placed at MN as shown below.

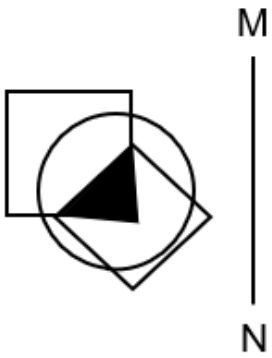

जब दर्पण को नीचे दर्शाए अनुसार MN पर रखा जाता है, तो दी गई आकृति के सही दर्पण प्रतिबिंब का चयन करें।

(1) 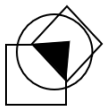

(2) 

(3) 

(4)  ✔

Q.22 If 1 is subtracted from each odd digit and 2 is added to each even digit in the number 572493346162, then what will be the sum of the digits that are fourth from the left and second from the right of the new number thus formed?

यदि संख्या 572493346162 में प्रत्येक विषम अंक में से 1 घटाया जाए और प्रत्येक सम अंक में 2 जोड़ा जाए, तो इस प्रकार बनी नई संख्या में बाएँ से चौथे और दाएँ से दूसरे अंकों का योग क्या होगा?

(1) 14 ✔

(2) 10

(3) 13

(4) 12

Q.23 Based on the English alphabetical order, three of the following four letter-clusters are alike in a certain way and thus form a group. Which is the letter-cluster that does NOT belong to that group?
(Note: The odd one out is not based on the number of consonants/vowels or their positions in the letter-cluster.)

अंग्रेज़ी वर्णमाला क्रम के आधार पर, निम्नलिखित चार अक्षर-समूहों में से तीन किसी निश्चित प्रकार से एक समान हैं और इस प्रकार एक समूह बनाते हैं। वह कौन-सा अक्षर-समूह है जो उस समूह से संबंधित नहीं है?
(ध्यान दें: असंगत अक्षर-समूह, उस अक्षर-समूह में व्यंजनों/स्वरों की संख्या या उनके स्थान पर आधारित नहीं है।)

(1) FGM

(2) PQW

(3) DEL ✔

(4) ABH

QuickSarkari.com | WhatsApp Channel | Telegram: t.me/quick_sarkari

Q.24 If all the odd digits remain same and 2 is subtracted from each even digit in the number 4317856, what will the product of the highest and lowest digits in the number thus formed be?

यदि संख्या 4317856 में सभी विषम अंक यथावत रहें और प्रत्येक सम अंक में से 2 घटाया जाए, तो इस प्रकार बनी संख्या में सबसे बड़े और सबसे छोटे अंकों का गुणनफल क्या होगा?

(1) 2

(2) 4

(3) **7** ✔

(4) 5

Q.25 If 'A' stands for '÷', 'B' stands for '×', 'C' stands for '+', and 'D' stands for '–', then what will come in place of question mark (?) in the following equation?

198 A 6 C 31 B 5 D 49 = ?

यदि 'A' का अर्थ '÷', 'B' का अर्थ '×', 'C' का अर्थ '+' और 'D' का अर्थ '–' है, तो निम्नलिखित समीकरण में प्रश्न चिह्न (?) के स्थान पर क्या आएगा?

198 A 6 C 31 B 5 D 49 = ?

(1) **139** ✔

(2) 136

(3) 131

(4) 143

Q.26 425 is related to 487 following a certain logic. Following the same logic, 509 is related to 571. To which of the given options is 612 related, following the same logic?

(Note: Operations should be performed on the whole numbers, without breaking down the numbers into their constituent digits. E.g. 13 – Operations on 13 such as adding/subtracting/multiplying to 13 can be performed. Breaking down 13 into 1 and 3 and then performing mathematical operations on 1 and 3 is not allowed.)

एक निश्चित तर्क का अनुसरण करते हुए 425, 487 से संबंधित है। उसी तर्क का अनुसरण करते हुए, 509, 571 से संबंधित है। उसी तर्क का अनुसरण करते हुए, 612 दिए गए विकल्पों में से किससे संबंधित है?

(ध्यान दें: संक्रियाएँ पूर्ण संख्याओं पर की जानी चाहिए, संख्याओं को उनके घटक अंकों में तोड़े बिना। उदाहरण 13 – 13 पर संक्रियाएँ जैसे 13 में जोड़ना/घटाना/गुणा करना आदि किया जा सकता है। 13 को 1 और 3 में तोड़ना और फिर 1 और 3 पर गणितीय संक्रियाएँ करना वर्जित है।)

(1) 866

(2) 682

(3) **674** ✔

(4) 692

Q.27 Which of the following letter-clusters will replace the question mark (?) in the given series to make it logically complete?

OXL1 PTN3 QPP9 RLR27 ?

दी गई श्रृंखला को तार्किक रूप से पूर्ण करने के लिए निम्नलिखित में से कौन-सा अक्षर-समूह प्रश्न चिह्न (?) का स्थान लेगा?

OXL1 PTN3 QPP9 RLR27 ?

(1) TIU87

(2) **SHT81** ✔

(3) SGS79

(4) SIU81

Q.28 Which letter cluster will replace the question mark (?) to complete the given series?
BGLN DINQ FKPT HMRW ?
दी गई श्रृंखला को पूर्ण करने के लिए कौन-सा अक्षर-समूह प्रश्न चिह्न (?) का स्थान लेगा?
BGLN DINQ FKPT HMRW ?

(1) KRUZ
(2) JOTZ ✔
(3) JRTY
(4) KPUY

Q.29 15 is related to 58 following a certain logic. Following the same logic, 10 is related to 38. To which of the following is 18 related, following the same logic?
(NOTE : Operations should be performed on the whole numbers, without breaking down the numbers into its constituent digits. E.g. 13 – Operations on 13 such as adding /subtracting /multiplying etc. to 13 can be performed. Breaking down 13 into 1 and 3 and then performing mathematical operations on 1 and 3 is not allowed)
एक निश्चित तर्क का अनुसरण करते हुए 15, 58 से संबंधित है। उसी तर्क का अनुसरण करते हुए, 10, 38 से संबंधित है। उसी तर्क का अनुसरण करते हुए, 18 निम्नलिखित में से किससे संबंधित है?
(ध्यान दें: संक्रियाएँ पूर्ण संख्याओं पर की जानी चाहिए, संख्याओं को उनके घटक अंकों में तोड़े बिना। उदाहरण 13 – 13 पर संक्रियाएँ जैसे 13 में जोड़ना/घटाना/गुणा करना आदि किया जा सकता है। 13 को 1 और 3 में तोड़ना और फिर 1 और 3 पर गणितीय संक्रियाएँ करना वर्जित है।)

(1) 52
(2) 70 ✔
(3) 74
(4) 72

Q.30 What will come in the place of the question mark (?) in the following equation, if '+' and '–' are interchanged and '×' and '÷' are interchanged?
34 + 16 × 8 − 7 ÷ 3 = ?
यदि '+' और '–' को आपस में बदल दिया जाए तथा '×' और '÷' को आपस में बदल दिया जाए, तो निम्नलिखित समीकरण में प्रश्न चिह्न (?) के स्थान पर क्या आएगा?
34 + 16 × 8 − 7 ÷ 3 = ?

(1) 54
(2) 51
(3) 52
(4) 53 ✔

Q.31 Select the pair that follows the same pattern as the one followed by the two sets of pairs given below. Both pairs follow the same pattern.
SOM : URL HNN : JQM
उस युग्म का चयन करें जो उसी पैटर्न का अनुसरण करता है जिसका अनुसरण नीचे दिए गए युग्मों के दो समुच्चयों द्वारा किया गया है। दोनों युग्म समान पैटर्न का अनुसरण करते हैं।
SOM : URL HNN : JQM

(1) SIL : UKK
(2) TVM : VYO
(3) FIT : HLS ✔
(4) WHG : YGJ

Q.32 Based on the English alphabetical order, three of the following four letter-clusters are alike in a certain way and thus form a group. Which letter-cluster DOES NOT belong to that group?
(Note: The odd one out is not based on the number of consonants/vowels or their position in the letter-cluster.)
अंग्रेज़ी वर्णमाला क्रम के आधार पर, निम्नलिखित चार अक्षर-समूहों में से तीन किसी निश्चित प्रकार से एक समान हैं और इस प्रकार एक समूह बनाते हैं। कौन-सा अक्षर-समूह उस समूह से संबंधित नहीं है?
(ध्यान दें: असंगत अक्षर-समूह, उस अक्षर-समूह में व्यंजनों/स्वरों की संख्या या उनके स्थान पर आधारित नहीं है।)

(1) MHL ✔
(2) TOR
(3) RMP
(4) OJM

Q.33 12 is related to 132 following a certain logic. Following the same logic, 20 is related to 380. To which of the following is 15 related, following the same logic?
(NOTE: Operations should be performed on the whole numbers, without breaking down the numbers into their constituent digits. E.g. 13 – Operations on 13 such as adding/subtracting/multiplying etc. to 13, can be performed. Breaking down 13 into 1 and 3 and then performing mathematical operations on 1 and 3 is not allowed.)
एक निश्चित तर्क का अनुसरण करते हुए 12, 132 से संबंधित है। उसी तर्क का अनुसरण करते हुए, 20, 380 से संबंधित है। उसी तर्क का अनुसरण करते हुए, 15 निम्नलिखित में से किससे संबंधित है?
(ध्यान दें: संक्रियाएँ पूर्ण संख्याओं पर की जानी चाहिए, संख्याओं को उनके घटक अंकों में तोड़े बिना। उदाहरण 13 – 13 पर संक्रियाएँ जैसे 13 में जोड़ना/घटाना/गुणा करना आदि किया जा सकता है। 13 को 1 और 3 में तोड़ना और फिर 1 और 3 पर गणितीय संक्रियाएँ करना वर्जित है।)

(1) 210 ✔
(2) 225
(3) 196
(4) 240

Q.34 What should come in place of '?' in the given series?
40 55 69 82 94 ?
दी गई श्रृंखला में '?' के स्थान पर क्या आना चाहिए?
40 55 69 82 94 ?

(1) 105 ✔
(2) 101
(3) 112
(4) 107

QuickSarkari.com | WhatsApp Channel | Telegram: t.me/quick_sarkari

Q.35 In the following number-pairs, the second number is obtained by applying certain mathematical operations to the first number. Select the set in which the numbers are related in the same way as are the numbers of the following sets.
(NOTE : Operations should be performed on the whole numbers, without breaking down the numbers into its constituent digits. E.g. 13 – Operations on 13 such as adding / subtracting /multiplying etc. to 13 can be performed. Breaking down 13 into 1 and 3 and then performing mathematical operations on 1 and 3 is not allowed)
15, 120 18, 144

निम्नलिखित संख्या-युग्मों में, पहली संख्या पर कुछ गणितीय संक्रियाएँ करके दूसरी संख्या प्राप्त की जाती है। उस समुच्चय का चयन करें जिसमें संख्याएँ उसी प्रकार संबंधित हैं जिस प्रकार निम्नलिखित समुच्चयों की संख्याएँ संबंधित हैं।
(ध्यान दें: संक्रियाएँ पूर्ण संख्याओं पर की जानी चाहिए, संख्याओं को उनके घटक अंकों में तोड़े बिना। उदाहरण 13 – 13 पर संक्रियाएँ जैसे 13 में जोड़ना/घटाना/गुणा करना आदि किया जा सकता है। 13 को 1 और 3 में तोड़ना और फिर 1 और 3 पर गणितीय संक्रियाएँ करना वर्जित है।)
15, 120 18, 144

(1) 9, 82
(2) 12, 84
(3) 22, 176 ✔
(4) 25, 125

Q.36 If 'A' stands for '+' , 'B' stands for '-', 'C' stands for '×' and 'D' stands for '÷ ' , what will come in place of the question mark (?) in the following equation?
51 D 3 A 7 C 9 B 15 =?

यदि 'A' का अर्थ '+' , 'B' का अर्थ '-', 'C' का अर्थ '×' और 'D' का अर्थ '÷ ' है, तो निम्नलिखित समीकरण में प्रश्न चिह्न (?) के स्थान पर क्या आएगा?
51 D 3 A 7 C 9 B 15 =?

(1) 65 ✔
(2) 67
(3) 63
(4) 61

Q.37 What should come in place of the question mark (?) in the given series?
38 40 50 52 62 ?

दी गई श्रृंखला में प्रश्न चिह्न (?) के स्थान पर क्या आना चाहिए?
38 40 50 52 62 ?

(1) 56
(2) 54
(3) 65
(4) 64 ✔

QuickSarkari.com | WhatsApp Channel | Telegram: t.me/quick_sarkari

Q.38 In this question, three statements are given, followed by two conclusions numbered I and II. Assuming the statements to be true, even if they seem to be at variance with commonly known facts, decide which of the conclusion(s) logically follows/follow from the statements.
Statements: All horses are ants. All ants are bears. All bears are rats.
Conclusions (I) : All horses are bears.
Conclusions (II) : All ants are rats.

इस प्रश्न में तीन कथन दिए गए हैं, जिनके बाद I और II क्रमांकित दो निष्कर्ष दिए गए हैं। कथनों को सत्य मानते हुए, भले ही वे सामान्यतः ज्ञात तथ्यों से भिन्न प्रतीत होते हों, निर्णय लीजिए कि कौन-सा/से निष्कर्ष तार्किक रूप से कथनों का अनुसरण करता है/करते हैं।
कथन: सभी घोड़े, चींटियाँ हैं। सभी चींटियाँ, भालू हैं। सभी भालू, चूहे हैं।
निष्कर्ष (I) : सभी घोड़े, भालू हैं।
निष्कर्ष (II) : सभी चींटियाँ, चूहे हैं।

(1) Only conclusion II follows. / केवल निष्कर्ष II अनुसरण करता है।
(2) Both conclusions I and II follow. / निष्कर्ष I और II दोनों अनुसरण करते हैं। ✔
(3) Neither conclusion I nor II follows. / न तो निष्कर्ष I और न ही II अनुसरण करता है।
(4) Only conclusion I follows. / केवल निष्कर्ष I अनुसरण करता है।

Q.39 Select the option figure in which the given figure (X) is embedded as its part (rotation is NOT allowed).



उस विकल्प आकृति का चयन करें जिसमें दी गई आकृति (X) उसके भाग के रूप में निहित है (घुमाने की अनुमति नहीं है)।

(1) 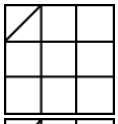
(2) 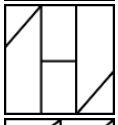
(3) 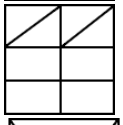
(4) 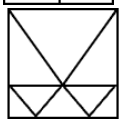 ✔

Q.40 What should come in place of the question mark (?) in the given series?
205 170 140 115 95 ?

दी गई श्रृंखला में प्रश्न चिह्न (?) के स्थान पर क्या आना चाहिए?
205 170 140 115 95 ?

(1) 75
(2) 85
(3) 70
(4) 80 ✔

QuickSarkari.com | WhatsApp Channel | Telegram: t.me/quick_sarkari

General Awareness

Q.41 The Permanent Settlement was implemented in which of the following areas?
स्थायी बंदोबस्त निम्नलिखित में से किस क्षेत्र में लागू किया गया था?

(1) Madras / मद्रास
(2) **Bengal / बंगाल ✔**
(3) Punjab / पंजाब
(4) Bombay / बंबई

Q.42 Which of the following Indian language was first recognised as a Classical Language by the Government of India in 2004?
निम्नलिखित में से किस भारतीय भाषा को वर्ष 2004 में भारत सरकार द्वारा सबसे पहले शास्त्रीय भाषा के रूप में मान्यता दी गई थी?

(1) **Tamil / तमिल ✔**
(2) Sanskrit / संस्कृत
(3) Odia / ओड़िया
(4) Malayalam / मलयालम

Q.43 Who is the ex-officio Chairman of the Rajya Sabha?
राज्यसभा का पदेन सभापति कौन होता है?

(1) The President of India / भारत के राष्ट्रपति
(2) **The Vice-President of India / भारत के उपराष्ट्रपति ✔**
(3) The Prime Minister of India / भारत के प्रधानमंत्री
(4) The Speaker of Lok Sabha / लोकसभा अध्यक्ष

Q.44 Which of the following is a constitutional body created under Article 324 of the Indian Constitution?
निम्नलिखित में से कौन-सा भारतीय संविधान के अनुच्छेद 324 के अंतर्गत गठित एक संवैधानिक निकाय है?

(1) Central Information Commission / केंद्रीय सूचना आयोग
(2) Union Public Service Commission / संघ लोक सेवा आयोग
(3) **Election Commission of India / भारत निर्वाचन आयोग ✔**
(4) National Human Rights Commission / राष्ट्रीय मानवाधिकार आयोग

Q.45 Warli painting is predominantly associated with which Indian state?
वारली चित्रकला मुख्य रूप से किस भारतीय राज्य से संबंधित है?

(1) Odisha / ओडिशा
(2) **Maharashtra / महाराष्ट्र ✔**
(3) Tamil Nadu / तमिलनाडु
(4) Kerala / केरल

Q.46 What primary force causes wind deflection to the right in the Northern Hemisphere?
उत्तरी गोलार्ध में पवन के दाईं ओर विक्षेपण का प्राथमिक कारण कौन-सा बल है?

(1) **Coriolis force / कोरिऑलिस बल ✔**
(2) Jet stream / जेट स्ट्रीम
(3) Trade winds / व्यापारिक पवनें
(4) Westerly flow / पछुआ प्रवाह

Q.47 In which year was the 11th Fundamental Duty, requiring parents and guardians to provide educational opportunities to their children, added to Part IVA of the Constitution?

माता-पिता और अभिभावकों द्वारा अपने बच्चों को शिक्षा के अवसर प्रदान करने संबंधी 11वाँ मौलिक कर्तव्य संविधान के भाग IVA में किस वर्ष जोड़ा गया था?

(1) 2003

(2) 2000

(3) 2002 ✔

(4) 2001

Q.48 Armed forces can be deployed in a State under:

किसी राज्य में सशस्त्र बलों की तैनाती किसके अंतर्गत की जा सकती है?

(1) Article 361 / अनुच्छेद 361

(2) Article 352 / अनुच्छेद 352

(3) Article 355 / अनुच्छेद 355 ✔

(4) Article 356 / अनुच्छेद 356

Q.49 Which of the following correct group of countries share a land boundary with India?

निम्नलिखित में से देशों का कौन-सा सही समूह भारत के साथ स्थल सीमा साझा करता है?

(1) Myanmar, Bhutan, Bangladesh / म्यांमार, भूटान, बांग्लादेश ✔

(2) China, Maldives, Sri Lanka / चीन, मालदीव, श्रीलंका

(3) Nepal, Sri Lanka, Afghanistan / नेपाल, श्रीलंका, अफ़गानिस्तान

(4) Bhutan, Maldives, Sri Lanka / भूटान, मालदीव, श्रीलंका

Q.50 According to historical studies, which was the primary basis for structuring society in the Vijayanagar Empire?

ऐतिहासिक अध्ययनों के अनुसार, विजयनगर साम्राज्य में समाज की संरचना का प्राथमिक आधार क्या था?

(1) Military rank / सैन्य पद

(2) Caste hierarchy / जाति पदानुक्रम ✔

(3) Tribal affiliations / जनजातीय संबद्धता

(4) Village councils / ग्राम परिषदें

Q.51 Who among the following was the Viceroy of India at the time of the formation of the Indian National Congress?

भारतीय राष्ट्रीय कांग्रेस के गठन के समय भारत का वायसराय निम्नलिखित में से कौन था?

(1) Wellesley / वेलेजली

(2) Dufferin / डफरिन ✔

(3) Curzon / कर्ज़न

(4) Hastings / हेस्टिंग्स

Q.52 Which Fundamental Right is available only to citizens and not to foreigners?

कौन-सा मौलिक अधिकार केवल नागरिकों को प्राप्त है, विदेशियों को नहीं?

(1) Right against Exploitation (Article 23) / शोषण के विरुद्ध अधिकार (अनुच्छेद 23)

(2) Right to Freedom of Speech (Article 19) / वाक् स्वातंत्र्य का अधिकार (अनुच्छेद 19) ✔

(3) Right to Protection in Arrest / गिरफ़्तारी से संरक्षण का अधिकार

(4) Right to Equality before Law / विधि के समक्ष समता का अधिकार

Q.53 How does the drainage was integrated into Harappan urban design?

हड़प्पा के नगरीय नियोजन में जल निकासी व्यवस्था को किस प्रकार एकीकृत किया गया था?

(1) Drains were built below the granaries. / नालियाँ अन्नागारों के नीचे बनाई गई थीं।

(2) Drainage planning came after house construction. / जल निकासी की योजना घरों के निर्माण के बाद बनाई गई थी।

(3) Houses had no connection to the drains. / घरों का नालियों से कोई संबंध नहीं था।

(4) Drains were planned first, and houses were built along them. / पहले नालियों की योजना बनाई गई थी, और घर उनके साथ-साथ बनाए गए थे। ✔

Q.54 When did Dadabhai Naoroji first present the concept of the 'Drain of Wealth', highlighting economic exploitation under British rule?

दादाभाई नौरोजी ने ब्रिटिश शासन के अंतर्गत आर्थिक शोषण को उजागर करते हुए 'धन की निकासी' (Drain of Wealth) की अवधारणा पहली बार कब प्रस्तुत की थी?

(1) 1886

(2) 1880

(3) 1867 ✔

(4) 1875

Q.55 The Chilika Lake, a significant lagoon, is located in which state?

चिल्का झील, एक महत्वपूर्ण लैगून, किस राज्य में स्थित है?

(1) West Bengal / पश्चिम बंगाल

(2) Andhra Pradesh / आंध्र प्रदेश

(3) Odisha / ओडिशा ✔

(4) Tamil Nadu / तमिलनाडु

Q.56 At what latitude is the Tropic of Cancer located approximately?

कर्क रेखा लगभग किस अक्षांश पर स्थित है?

(1) 50° South / 50° दक्षिण

(2) 66.5° North / 66.5° उत्तर

(3) 66.5° South / 66.5° दक्षिण

(4) 23.5° North / 23.5° उत्तर ✔

Q.57 Who founded the Delhi Sultanate in 1206?

वर्ष 1206 में दिल्ली सल्तनत की स्थापना किसने की थी?

(1) Alauddin Khilji / अलाउद्दीन खिलजी

(2) Qutb-ud-din Aibak / कुतुबुद्दीन ऐबक ✔

(3) Iltutmish / इल्तुतमिश

(4) Muhammad bin Tughlaq / मुहम्मद बिन तुगलक

Q.58 Which of the following river systems is called the "National Waterways 1" in India?

भारत में निम्नलिखित में से किस नदी तंत्र को "राष्ट्रीय जलमार्ग 1" कहा जाता है?

(1) The Kakinada-Puducherry - Godavari river system / काकीनाडा-पुडुचेरी - गोदावरी नदी तंत्र

(2) The Krishna - Kaveri - Godavari river system / कृष्णा - कावेरी - गोदावरी नदी तंत्र

(3) The Ganga - Bhagirathi - Hooghly river system / गंगा - भागीरथी - हुगली नदी तंत्र ✔

(4) The Brahmaputra - Ganga - Sutlej River System / ब्रह्मपुत्र - गंगा - सतलुज नदी तंत्र

Q.59 In which year was the Hindustan Ghadar Party established?

हिंदुस्तान ग़दर पार्टी की स्थापना किस वर्ष हुई थी?

(1) 1917

(2) 1907

(3) 1911

(4) 1913 ✔

Q.60 Which of the following is a feature of the cotton textile industry in India?

निम्नलिखित में से कौन-सी भारत में सूती वस्त्र उद्योग की एक विशेषता है?

(1) Decentralized in nature / विकेंद्रीकृत प्रकृति ✔

(2) Entirely dependent on synthetic fibre / पूर्णतः कृत्रिम रेशे पर निर्भर

(3) Highly capital-intensive / अत्यधिक पूँजी-प्रधान

(4) Located only in Maharashtra / केवल महाराष्ट्र में स्थित

Q.61 Which of the following is measured by the Gini Coefficient in the Indian rural development context?

भारतीय ग्रामीण विकास के संदर्भ में गिनी गुणांक द्वारा निम्नलिखित में से किसे मापा जाता है?

(1) Migration rate / प्रवासन दर

(2) Income inequality / आय असमानता ✔

(3) Agricultural output / कृषि उत्पादन

(4) Literacy ratio / साक्षरता अनुपात

Q.62 In 2025, which footballer became the fastest male player ever to score 50 international goals, breaking the previous record held by Harry Kane?

वर्ष 2025 में, हैरी केन के पिछले रिकॉर्ड को तोड़ते हुए, कौन-सा फ़ुटबॉल खिलाड़ी 50 अंतरराष्ट्रीय गोल करने वाला अब तक का सबसे तेज़ पुरुष खिलाड़ी बना?

(1) Cristiano Ronaldo / क्रिस्टियानो रोनाल्डो

(2) Kylian Mbappé / किलियन एम्बाप्पे

(3) Erling Haaland / अर्लिंग हालैंड ✔

(4) Lionel Messi / लियोनेल मेसी

Q.63 On which incorporation day did Government e-Marketplace (GeM) launch India's first GenAI chatbot in the public sector in 2025?

वर्ष 2025 में गवर्नमेंट ई-मार्केटप्लेस (GeM) ने अपने किस स्थापना दिवस पर सार्वजनिक क्षेत्र में भारत का पहला GenAI चैटबॉट लॉन्च किया?

(1) 4th / 4वें

(2) 8th / 8वें ✔

(3) 6th / 6वें

(4) 9th / 9वें

Q.64 As per the March 2025 PIB release, how many eSewa Kendras have been established across India to facilitate citizen-centric services under the eCourts Project?

मार्च 2025 की PIB विज्ञप्ति के अनुसार, ई-कोर्ट्स परियोजना के अंतर्गत नागरिक-केंद्रित सेवाओं की सुविधा के लिए पूरे भारत में कितने ई-सेवा केंद्र स्थापित किए गए हैं?

(1) 2870

(2) 1610 ✔

(3) 4210

(4) 714

Q.65 In July 2025, who became India's 87th Grandmaster after earning his final GM norm at the La Plagne International Chess Festival in France?

जुलाई 2025 में, फ़्रांस में ला प्लान्य अंतरराष्ट्रीय शतरंज महोत्सव में अपना अंतिम GM नॉर्म प्राप्त करने के बाद कौन भारत का 87वाँ ग्रैंडमास्टर बना?

(1) R Praggnanandhaa / आर प्रज्ञानानंदा

(2) Arjun Erigaisi / अर्जुन एरिगैसी

(3) D Gukesh / डी गुकेश

(4) Harikrishnan A. Ra. / हरिकृष्णन ए. रा. ✔

Q.66 Who won the 2024 Nobel Prize in Literature?

साहित्य का 2024 का नोबेल पुरस्कार किसने जीता?

(1) Daron Acemoglu / डेरॉन एसेमोग्लू

(2) Victor Ambros / विक्टर एम्ब्रोस

(3) Han Kang / हान कांग ✔

(4) Nihon Hidankyo / निहोन हिदानक्यो

Q.67 In 2025, which space programme did ISRO declare as its central focus for the year?

वर्ष 2025 में, इसरो (ISRO) ने किस अंतरिक्ष कार्यक्रम को वर्ष का केंद्रीय लक्ष्य घोषित किया?

(1) Gaganyaan Human Spaceflight Programme / गगनयान मानव अंतरिक्ष उड़ान कार्यक्रम ✔

(2) Mars Orbiter Mission Expansion / मंगल कक्षित्र मिशन विस्तार

(3) Chandrayaan Lunar Exploration Mission / चंद्रयान चंद्र अन्वेषण मिशन

(4) Aditya Solar Observation Programme / आदित्य सौर अवलोकन कार्यक्रम

Q.68 Which of the following is NOT a condition for Newtonian mechanics to be valid?

निम्नलिखित में से कौन-सी न्यूटनीय यांत्रिकी के मान्य होने की शर्त नहीं है?

(1) Low velocities compared to the speed of light / प्रकाश की चाल की तुलना में कम वेग

(2) Large scale objects (not atomic) / बड़े पैमाने की वस्तुएँ (परमाणवीय नहीं)

(3) Negligible gravitational force / नगण्य गुरुत्वाकर्षण बल ✔

(4) Macroscopic dimensions / स्थूल आयाम

Q.69 What are the official dates for the 3rd United Nations Ocean Conference (UNOC3)?

तीसरे संयुक्त राष्ट्र महासागर सम्मेलन (UNOC3) की आधिकारिक तिथियाँ क्या हैं?

(1) 1–5 June 2025 / 1–5 जून 2025

(2) 9–13 June 2025 / 9–13 जून 2025 ✔

(3) 10–14 July 2025 / 10–14 जुलाई 2025

(4) 15–19 May 2025 / 15–19 मई 2025

Q.70 In the saponification process, triglycerides are reacted with which alkali to produce glycerol and fatty acid salts called "soaps"?

साबुनीकरण प्रक्रिया में, ग्लिसरॉल और "साबुन" कहलाने वाले वसीय अम्ल लवण बनाने के लिए ट्राइग्लिसराइड की अभिक्रिया किस क्षार से कराई जाती है?

(1) $Ba(OH)_2$

(2) $Mg(OH)_2$

(3) NaOH ✔

(4) $Ca(OH)_2$

Q.71 India signed a US$7 billion LNG supply contract with ADNOC (UAE) through IOCL to support its transition to a natural gas-based economy. From which year will this 14-year contract begin?
भारत ने प्राकृतिक गैस आधारित अर्थव्यवस्था की ओर अपने संक्रमण में सहायता के लिए IOCL के माध्यम से ADNOC (UAE) के साथ US$7 बिलियन का LNG आपूर्ति अनुबंध किया। यह 14-वर्षीय अनुबंध किस वर्ष से प्रारंभ होगा?

(1) 2026 ✔
(2) 2024
(3) 2025
(4) 2027

Q.72 Which acid-base theory is restricted to water as a solvent?
कौन-सा अम्ल-क्षार सिद्धांत विलायक के रूप में केवल जल तक सीमित है?

(1) Arrhenius theory / आर्रेनियस सिद्धांत ✔
(2) Lowry-Bronsted theory / लाउरी-ब्रान्सटेड सिद्धांत
(3) Davy's theory / डेवी का सिद्धांत
(4) Lewis's theory / लुईस का सिद्धांत

Q.73 Which missile system is designed to replace the Kh-31 in the Indian Air Force's inventory?
भारतीय वायु सेना के शस्त्रागार में Kh-31 का स्थान लेने के लिए कौन-सी मिसाइल प्रणाली डिज़ाइन की गई है?

(1) Pinaka / पिनाका
(2) QRSAM
(3) LRAShM
(4) Rudram-II / रुद्रम-II ✔

Q.74 Which of the following programs was aimed to ensure attainment of malnutrition free India by 2022?
निम्नलिखित में से किस कार्यक्रम का उद्देश्य वर्ष 2022 तक कुपोषण मुक्त भारत की प्राप्ति सुनिश्चित करना था?

(1) Special Nutrition / विशेष पोषण
(2) Balwadi Nutrition / बालवाड़ी पोषण
(3) POSHAN Abhiyaan / पोषण अभियान ✔
(4) Midday Meal / मध्याह्न भोजन

Q.75 Which of the following is not a component of the Human Development Index (HDI)?
निम्नलिखित में से कौन-सा मानव विकास सूचकांक (HDI) का घटक नहीं है?

(1) Literacy rate / साक्षरता दर
(2) Gender Inequality / लैंगिक असमानता ✔
(3) Life expectancy at birth / जन्म के समय जीवन प्रत्याशा
(4) Gross National Income (GNI) per capita / सकल राष्ट्रीय आय (GNI) प्रति व्यक्ति

Q.76 On 21 April 2025, at the age of 88, Pope Francis took his last breath at which of the following places?
21 अप्रैल 2025 को, 88 वर्ष की आयु में, पोप फ्रांसिस ने निम्नलिखित में से किस स्थान पर अंतिम साँस ली?

(1) Venice / वेनिस
(2) Finland / फ़िनलैंड
(3) Vatican / वेटिकन ✔
(4) Florence / फ़्लोरेंस

Q.77 Which of the following are the functions included in the Twelfth Schedule of the Constitution of India?
1. Roads and bridges
2. Urban forestry
3. Urban poverty alleviation
4. Non-conventional energy sources
5. Regulation of land use

निम्नलिखित में से कौन-से कार्य भारत के संविधान की बारहवीं अनुसूची में शामिल हैं?
1. सड़कें और पुल
2. नगरीय वानिकी
3. नगरीय निर्धनता उन्मूलन
4. गैर-परंपरागत ऊर्जा स्रोत
5. भूमि उपयोग का विनियमन

(1) 1, 2, 3, 5 ✔
(2) 1, 3
(3) 2, 3, 4,5
(4) 2, 3, 4

Q.78 The 'PM Vishwakarma' scheme provides financial support to traditional artisans and craftspeople with an initial loan limit of _____

'पीएम विश्वकर्मा' योजना पारंपरिक कारीगरों और शिल्पकारों को _____ की प्रारंभिक ऋण सीमा के साथ वित्तीय सहायता प्रदान करती है।

(1) ₹50,000
(2) ₹1 lakh / ₹1 लाख ✔
(3) ₹2 lakh / ₹2 लाख
(4) ₹5 lakh / ₹5 लाख

Q.79 In May 2025, Neeraj Chopra became the first Indian javelin thrower to surpass the 90-meter mark in an international competition. What was the exact distance of his record-breaking throw at the Doha Diamond League?

मई 2025 में, नीरज चोपड़ा किसी अंतरराष्ट्रीय प्रतियोगिता में 90 मीटर का आँकड़ा पार करने वाले पहले भारतीय भाला फेंक खिलाड़ी बने। दोहा डायमंड लीग में उनके रिकॉर्ड-तोड़ थ्रो की सटीक दूरी क्या थी?

(1) 88.44 meters / 88.44 मीटर
(2) 89.94 meters / 89.94 मीटर
(3) 91.06 meters / 91.06 मीटर
(4) 90.23 meters / 90.23 मीटर ✔

Q.80 As highlighted by the United Nations Office for South-South Cooperation, which newly adopted framework at the 47th Association of Southeast Asian Nations Summit held in Kuala Lumpur in October 2025 explicitly institutionalised cooperation between ASEAN and the United Nations with a focus on South-South and triangular cooperation?

संयुक्त राष्ट्र दक्षिण-दक्षिण सहयोग कार्यालय द्वारा रेखांकित किए गए अनुसार, अक्टूबर 2025 में कुआलालंपुर में आयोजित 47वें दक्षिण-पूर्व एशियाई राष्ट्र संघ शिखर सम्मेलन में नए अपनाए गए किस ढाँचे ने दक्षिण-दक्षिण और त्रिकोणीय सहयोग पर ध्यान केंद्रित करते हुए आसियान और संयुक्त राष्ट्र के बीच सहयोग को स्पष्ट रूप से संस्थागत बनाया?

(1) Regional Comprehensive Economic Partnership / क्षेत्रीय व्यापक आर्थिक भागीदारी
(2) ASEAN United Nations Plan of Action / आसियान संयुक्त राष्ट्र कार्य योजना ✔
(3) ASEAN Digital Economy Framework Agreement / आसियान डिजिटल अर्थव्यवस्था फ्रेमवर्क समझौता
(4) ASEAN Outlook on Indo- Pacific / हिंद-प्रशांत पर आसियान दृष्टिकोण

Arithmetical and Numerical Ability

Q.81 A teacher has 144 red pens and 252 blue pens. What is the maximum number of pen sets she can make using all the pens, if each set has the same number of red and blue pens?

एक शिक्षिका के पास 144 लाल पेन और 252 नीले पेन हैं। यदि प्रत्येक सेट में लाल और नीले पेनों की संख्या समान हो, तो सभी पेनों का उपयोग करके वह अधिकतम कितने पेन सेट बना सकती है?

(1) 36 ✔

(2) 24

(3) 32

(4) 28

Q.82 Given that $39^{0.19} = x$, $39^{0.07} = y$ and $x^z = y^9$, then the value of z is close to:

दिया गया है कि $39^{0.19} = x$, $39^{0.07} = y$ और $x^z = y^9$ है, तो z का मान लगभग है:

(1) 3.32 ✔

(2) 4.65

(3) 4.02

(4) 1.03

Q.83 Salil buys mangoes at the rate of 3 kg for ₹15 and sells them at 5 kg for ₹60. To earn ₹133 as profit, how much quantity of mangoes (in kg) must he sell?

सलिल ₹15 में 3 kg की दर से आम खरीदता है और उन्हें ₹60 में 5 kg की दर से बेचता है। ₹133 का लाभ अर्जित करने के लिए उसे कितनी मात्रा में आम (kg में) बेचने होंगे?

(1) 21

(2) 20

(3) 22

(4) 19 ✔

Q.84 A person invested a certain amount at 6% per annum and earned a simple interest of ₹5,148 in 3 years. If he had invested the same amount at the same rate for 2 years under compound interest (compounded annually), what would have been the difference between the simple interest earned in 3 years and the compound interest earned in 2 years? (Round off your answer to the nearest rupee.)

एक व्यक्ति ने एक निश्चित राशि 6% वार्षिक दर पर निवेश की और 3 वर्षों में ₹5,148 का साधारण ब्याज अर्जित किया। यदि उसने समान राशि समान दर पर 2 वर्षों के लिए चक्रवृद्धि ब्याज (वार्षिक रूप से संयोजित) पर निवेश की होती, तो 3 वर्षों में अर्जित साधारण ब्याज और 2 वर्षों में अर्जित चक्रवृद्धि ब्याज के बीच कितना अंतर होता? (अपने उत्तर को निकटतम रुपये तक पूर्णांकित करें।)

(1) ₹1,620

(2) ₹1,610

(3) ₹1,615

(4) ₹1,613 ✔

Q.85 Ajay invests a sum of ₹6600 and Amit invests a sum of ₹9000 at the same rate of simple interest per annum. If, at the end of 6 years, Amit gets ₹720 more interest than Ajay, then find the rate of interest per annum (in percentage).

अजय ₹6600 की राशि और अमित ₹9000 की राशि साधारण ब्याज की समान वार्षिक दर पर निवेश करते हैं। यदि 6 वर्ष के अंत में अमित को अजय से ₹720 अधिक ब्याज मिलता है, तो वार्षिक ब्याज दर (प्रतिशत में) ज्ञात कीजिए।

(1) 5 ✔

(2) 3

(3) 4

(4) 7

Q.86 Laxminarayan deposited a certain sum of money at 5% rate of interest per annum, compounded annually. At the end of 2 years, Laxminarayan received a total amount of ₹38,367. What was the sum of money deposited by Laxminarayan?

लक्ष्मीनारायण ने वार्षिक रूप से संयोजित 5% वार्षिक ब्याज दर पर एक निश्चित धनराशि जमा की। 2 वर्ष के अंत में लक्ष्मीनारायण को कुल ₹38,367 की राशि प्राप्त हुई। लक्ष्मीनारायण द्वारा जमा की गई धनराशि कितनी थी?

(1) ₹34,800 ✔

(2) ₹34,810

(3) ₹35,195

(4) ₹34,408

Q.87 The average of three numbers is 22. If two numbers are 11 and 25, the third number is:

तीन संख्याओं का औसत 22 है। यदि दो संख्याएँ 11 और 25 हैं, तो तीसरी संख्या है:

(1) 31

(2) 32

(3) 30 ✔

(4) 29

Q.88 The following charts represent the sales of different types of electronic items in Delhi in the years 2023 and 2024. The total sales for both years is the same.

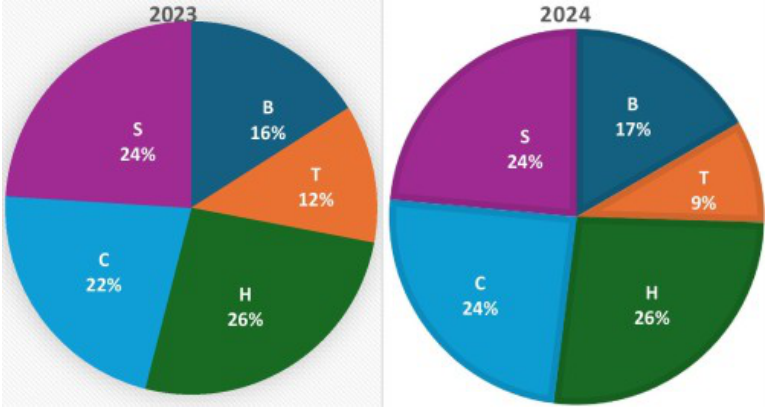

The percentage change in the sales of type T in 2024 with regard to the sales of type T in 2023 is:

निम्नलिखित चार्ट वर्ष 2023 और 2024 में दिल्ली में विभिन्न प्रकार की इलेक्ट्रॉनिक वस्तुओं की बिक्री को दर्शाते हैं।
दोनों वर्षों की कुल बिक्री समान है।
वर्ष 2023 में प्रकार T की बिक्री की तुलना में वर्ष 2024 में प्रकार T की बिक्री में प्रतिशत परिवर्तन है:

(1) 22% decrease / 22% कमी

(2) 28% decrease / 28% कमी

(3) 25% decrease / 25% कमी ✔

(4) 20% decrease / 20% कमी

Q.89 In what ratio must a grocer mix two varieties of wheat worth ₹51 per kg and ₹144 per kg so that if he sells the mixture at ₹145 per kg, he may gain 25%?

एक पंसारी को ₹51 प्रति kg और ₹144 प्रति kg मूल्य वाली गेहूँ की दो किस्मों को किस अनुपात में मिलाना चाहिए ताकि मिश्रण को ₹145 प्रति kg पर बेचने पर उसे 25% का लाभ हो?

(1) 28:65 ✔

(2) 31:66

(3) 26:69

(4) 39:70

Q.90 The ratio of blue pens to red pens in a box is 1:4. What is the percentage of blue pens present in the box?

एक डिब्बे में नीले पेनों और लाल पेनों का अनुपात 1:4 है। डिब्बे में उपस्थित नीले पेनों का प्रतिशत कितना है?

(1) 5 %

(2) 20 % ✔

(3) 10 %

(4) 15 %

Q.91 The sum of 10 consecutive natural numbers is 605. What will be the value of the smallest of these numbers?

10 क्रमागत प्राकृत संख्याओं का योग 605 है। इनमें से सबसे छोटी संख्या का मान क्या होगा?

(1) 57

(2) 55

(3) 56 ✔

(4) 54

Q.92 If 45% of a number exceeds 25% of it by 54, then the number is:

यदि किसी संख्या का 45%, उसके 25% से 54 अधिक है, तो वह संख्या है:

(1) 310

(2) 270 ✔

(3) 290

(4) 250

Q.93 The ratio of the cost prices of articles X and Y is 8 : 9. A man earns a profit of 37% by selling X and loses 14% by selling Y. What is his gain/loss percentage in the entire transaction?

वस्तुओं X और Y के क्रय मूल्यों का अनुपात 8 : 9 है। एक व्यक्ति X को बेचकर 37% का लाभ अर्जित करता है और Y को बेचकर 14% की हानि उठाता है। पूरे लेन-देन में उसका लाभ/हानि प्रतिशत क्या है?

(1) Loss, 10% / हानि, 10%

(2) Gain, 9.5% / लाभ, 9.5%

(3) Loss, 11.5% / हानि, 11.5%

(4) Gain, 10% / लाभ, 10% ✔

Q.94 Two numbers have an HCF of 5 and an LCM of 120. If one number is 15, find the other number.

दो संख्याओं का HCF 5 और LCM 120 है। यदि एक संख्या 15 है, तो दूसरी संख्या ज्ञात कीजिए।

(1) 45

(2) 50

(3) 40 ✔

(4) 60

Q.95 Simplify: (4/8) × (24/20) + (6/5 − 6)

सरल कीजिए: (4/8) × (24/20) + (6/5 − 6)

(1) −14/5

(2) −11/5

(3) −17/5

(4) −21/5 ✔

Q.96 Find the value of $(\sqrt[3]{(-1728)} \times \sqrt[3]{(-216)})/\sqrt[3]{64}$

$(\sqrt[3]{(-1728)} \times \sqrt[3]{(-216)})/\sqrt[3]{64}$ का मान ज्ञात कीजिए।

(1) -12

(2) 12

(3) 18 ✔

(4) -18

Q.97 A cyclist travels 14 km in the first hour, 16 km in second hour and 12 km in the third hour. How much distance has he covered in the three hours?

एक साइकिल चालक पहले घंटे में 14 km, दूसरे घंटे में 16 km और तीसरे घंटे में 12 km की यात्रा करता है। उसने तीन घंटों में कितनी दूरी तय की है?

(1) 44 km

(2) 38 km

(3) 34 km

(4) 42 km ✔

Q.98 A year ago, the population of a city was 3,54,986. In the following year, it increased by 68,483. What was the population of the city after the increase?

एक वर्ष पहले, एक शहर की जनसंख्या 3,54,986 थी। अगले वर्ष में, इसमें 68,483 की वृद्धि हुई। वृद्धि के बाद शहर की जनसंख्या कितनी थी?

(1) 4,23,459

(2) 4,23,469 ✔

(3) 4,23,489

(4) 4,23,439

Q.99 Three years ago from now, the average age of A, B and C was 21 years. After 3 years from now, the average age of A and C will be 21 years. What will be the age (in years) of B, after 7 years from now?

अब से तीन वर्ष पहले, A, B और C की औसत आयु 21 वर्ष थी। अब से 3 वर्ष बाद, A और C की औसत आयु 21 वर्ष होगी। अब से 7 वर्ष बाद B की आयु (वर्षों में) क्या होगी?

(1) 45

(2) 44

(3) 39

(4) 43 ✔

Q.100 The following table shows the export values (in crores of rupees) of five items in 2018 and 2023. ITEM/YEAR 2018 2023 Wheat 135 250 Millets 80 140 Tea 75 155 Coffee 60 120 Cotton 270 320 What percent of the total exports in 2023 was contributed by Millets and Coffee together? [Give your answer correct to two places after decimal.]

निम्नलिखित तालिका वर्ष 2018 और 2023 में पाँच वस्तुओं के निर्यात मूल्यों (करोड़ रुपये में) को दर्शाती है।

वस्तु/वर्ष 2018 2023 गेहूँ 135 250 मोटा अनाज 80 140 चाय 75 155 कॉफ़ी 60 120 कपास 270 320 वर्ष 2023 में कुल निर्यात में मोटा अनाज और कॉफ़ी का मिलाकर कितना प्रतिशत योगदान था? [अपना उत्तर दशमलव के बाद दो स्थानों तक सही दीजिए।]

(1) 30.16%

(2) **26.40%** ✔

(3) 12.18%

(4) 15.19%

Q.101 If 9.8 : x :: x : 7.2, and x > 0, then find the value of x.

यदि 9.8 : x :: x : 7.2 है, और x > 0 है, तो x का मान ज्ञात कीजिए।

(1) **8.4** ✔

(2) 4.8

(3) 6.4

(4) 7

Q.102 The base and the corresponding height of a parallelogram are 22 cm and 83 cm, respectively. The area of the parallelogram (in cm^2) is:

एक समांतर चतुर्भुज का आधार और संगत ऊँचाई क्रमशः 22 cm और 83 cm हैं। समांतर चतुर्भुज का क्षेत्रफल (cm^2 में) है:

(1) **1826** ✔

(2) 1823

(3) 1863

(4) 1849

Q.103 A shopkeeper fixes the marked price of an item 194% above its cost price. What percentage of discount on marked price should be allowed to gain 47%?

एक दुकानदार किसी वस्तु का अंकित मूल्य उसके क्रय मूल्य से 194% अधिक निर्धारित करता है। 47% का लाभ प्राप्त करने के लिए अंकित मूल्य पर कितने प्रतिशत की छूट दी जानी चाहिए?

(1) 48%

(2) 52%

(3) **50%** ✔

(4) 47%

Q.104 Find the surface area of a cuboid 17.2 m long, 15.5 m broad and 7 m high.

17.2 m लंबे, 15.5 m चौड़े और 7 m ऊँचे एक घनाभ का पृष्ठीय क्षेत्रफल ज्ञात कीजिए।

(1) 889 m^2

(2) 671 m^2

(3) 761 m^2

(4) **991 m^2** ✔

Q.105 A cylindrical drum having a diameter of 3 meters and a height of 5 meters is filled with water up to the brim. Find the quantity of water (in cu.m) it can store. (Considering π = 3.14) (round off to two decimal places).

3 मीटर व्यास और 5 मीटर ऊँचाई वाला एक बेलनाकार ड्रम किनारे तक पानी से भरा है। इसमें संग्रहीत किए जा सकने वाले पानी की मात्रा (घन मीटर में) ज्ञात कीजिए। (π = 3.14 मानते हुए) (दो दशमलव स्थानों तक पूर्णांकित करें)।

(1) 37.56

(2) 39.28

(3) 32.11

(4) 35.33 ✔

Q.106 Pipe A can fill a tank in 5 hours, pipe B in 30 hours, and pipe C in 60 hours. Find the time taken by all three pipes together to fill half of the tank.

पाइप A एक टंकी को 5 घंटे में, पाइप B 30 घंटे में और पाइप C 60 घंटे में भर सकता है। तीनों पाइपों द्वारा एक साथ मिलकर आधी टंकी भरने में लगने वाला समय ज्ञात कीजिए।

(1) 3 hours / 3 घंटे

(2) 4 hours / 4 घंटे

(3) 2 hours / 2 घंटे ✔

(4) 5 hours / 5 घंटे

Q.107 Three friends — A, B, and C — decide to buy identical products from a showroom with a list price of ₹20,000 each. The showroom offers a trade discount of 15% on the list price, and an additional discount of ₹1,000 on the discounted price if the purchase is made before the month-end. What is the final price each friend pays, if they make the purchase before the month-end?

तीन मित्र — A, B और C — एक शोरूम से समान उत्पाद खरीदने का निर्णय लेते हैं, जिनमें से प्रत्येक का सूची मूल्य ₹20,000 है। शोरूम सूची मूल्य पर 15% की व्यापारिक छूट देता है, और यदि खरीदारी महीने के अंत से पहले की जाती है, तो छूट वाले मूल्य पर ₹1,000 की अतिरिक्त छूट देता है। यदि वे महीने के अंत से पहले खरीदारी करते हैं, तो प्रत्येक मित्र द्वारा भुगतान किया गया अंतिम मूल्य क्या है?

(1) ₹18,000

(2) ₹16,000 ✔

(3) ₹17,000

(4) ₹15,000

Q.108 Three partners A, B, and C start a business. A invests ₹75,000, B invests ₹1,20,000, and C invests ₹1,50,000. After 6 months, B and C withdraw 25% of their capital, while A adds 20% more. If the total profit at the end of the year is ₹2,89,000, then what is the share of profit of B?

तीन साझेदार A, B और C एक व्यवसाय शुरू करते हैं। A ₹75,000, B ₹1,20,000 और C ₹1,50,000 का निवेश करता है। 6 महीने बाद, B और C अपनी पूँजी का 25% निकाल लेते हैं, जबकि A 20% अधिक जोड़ता है। यदि वर्ष के अंत में कुल लाभ ₹2,89,000 है, तो B के लाभ का हिस्सा कितना है?

(1) ₹1,36,000

(2) ₹74,800

(3) ₹1,19,000

(4) ₹95,200 ✔

Q.109 In covering a distance of 120 km, Pranay takes 8 hours more than Aman. If Pranay doubles his speed, then he would take 7 hours less than Aman. Pranay's original speed is:

120 km की दूरी तय करने में, प्रणय को अमन से 8 घंटे अधिक लगते हैं। यदि प्रणय अपनी चाल दोगुनी कर ले, तो उसे अमन से 7 घंटे कम लगेंगे। प्रणय की मूल चाल है:

(1) 3 km/hr

(2) 11 km/hr

(3) 13 km/hr

(4) 4 km/hr ✔

Q.110 The volume of a right circular cone of height 96 m is 19712 m^3. Find the difference between the total surface area and the curved surface area. (Take π = 22/7)

96 m ऊँचाई वाले एक लंब वृत्तीय शंकु का आयतन 19712 m^3 है। कुल पृष्ठीय क्षेत्रफल और वक्र पृष्ठीय क्षेत्रफल के बीच का अंतर ज्ञात कीजिए। (π = 22/7 लीजिए)

(1) 417 m^2

(2) 315 m^2

(3) 563 m^2

(4) 616 m^2 ✔

Q.111 The volume of a right circular cylinder whose height is 52 cm and circumference of its base is 110 cm is (Take π = 22/7):

उस लंब वृत्तीय बेलन का आयतन, जिसकी ऊँचाई 52 cm है और आधार की परिधि 110 cm है, होगा (π = 22/7 लें):

(1) 50005 cm^3

(2) 50500 cm^3

(3) 50505 cm^3

(4) 50050 cm^3 ✔

Q.112 If the volume of a hemisphere is nπ/3 cm^3 and its total surface area is 147π cm^2, find the value of 3n/49.

यदि एक अर्धगोले का आयतन nπ/3 cm3 है और इसका कुल पृष्ठीय क्षेत्रफल 147π cm2 है, तो 3n/49 का मान ज्ञात कीजिए।

(1) 32

(2) 46

(3) 52

(4) 42 ✔

Q.113 A bakery shop has an offer under which customers can get 1 free packet of Chips with purchase of 4 packets of Chips. What percentage discount is the customer getting in this purchasing?

एक बेकरी की दुकान में एक ऑफ़र है जिसके अंतर्गत ग्राहक चिप्स के 4 पैकेट खरीदने पर चिप्स का 1 पैकेट मुफ़्त प्राप्त कर सकते हैं। इस खरीदारी में ग्राहक को कितने प्रतिशत की छूट मिल रही है?

(1) 20% ✔

(2) 25%

(3) 10%

(4) 15%

Q.114 A bird's drinking bowl is in the shape of a cone with a height of 42 cm and a base radius of 15 cm. Find the maximum amount of water the bowl can hold. (Note: 1000 cm^3 = 1 liter)

एक पक्षी के पानी पीने का कटोरा 42 cm ऊँचाई और 15 cm आधार त्रिज्या वाले शंकु के आकार का है। कटोरे में अधिकतम कितना पानी आ सकता है, ज्ञात कीजिए। (नोट: 1000 cm^3 = 1 लीटर)

(1) 6.8 liters / 6.8 लीटर

(2) 9.9 liters / 9.9 लीटर ✔

(3) 7.6 liters / 7.6 लीटर

(4) 8.2 liters / 8.2 लीटर

Q.115 The total surface area (in m^2) of a cube, each of whose edges measures 115 m, is:

एक घन, जिसके प्रत्येक किनारे की माप 115 m है, का कुल पृष्ठीय क्षेत्रफल (m^2 में) है:

(1) 79350 ✔

(2) 79368

(3) 79344

(4) 79308

Q.116 Distance between two stations X and Y is 700 km. A train covers the journey from X to Y at 94 km/hr and returns back to X with a uniform speed of 75 km/hr. Find the average speed (km/hr, rounded off to two decimal places) of train during the whole journey.

दो स्टेशनों X और Y के बीच की दूरी 700 km है। एक रेलगाड़ी X से Y तक की यात्रा 94 km/hr की चाल से तय करती है और 75 km/hr की एकसमान चाल से X पर वापस लौटती है। पूरी यात्रा के दौरान रेलगाड़ी की औसत चाल (km/hr में, दो दशमलव स्थानों तक पूर्णांकित) ज्ञात कीजिए।

(1) 83.43 ✔

(2) 87.45

(3) 92.56

(4) 79.34

Q.117 A garrison of 1210 men has provisions for 16 days. How long (in days) will the provisions last if the garrison is increased to 1936 men?

1210 सैनिकों की एक सैन्य टुकड़ी के पास 16 दिनों के लिए रसद है। यदि टुकड़ी को बढ़ाकर 1936 सैनिक कर दिया जाए, तो रसद कितने दिनों तक चलेगी?

(1) 12

(2) 9

(3) 11

(4) 10 ✔

Q.118 If x and y are positive numbers, then the mean proportional of (x + y) and ($x^3 + x^2y$) is:

यदि x और y धनात्मक संख्याएँ हैं, तो (x + y) और ($x^3 + x^2y$) का मध्यानुपाती है:

(1) (x + y)

(2) x(x − y)

(3) x(x + y) ✔

(4) $x(x^2 + y)$

Q.119 S can type 10 pages in 5 minutes, while M can type 5 pages in 10 minutes. If they work alternately for one minute each, starting with S, how many pages can they type in total in 30 minutes?

S, 5 मिनट में 10 पेज टाइप कर सकता है, जबकि M, 10 मिनट में 5 पेज टाइप कर सकता है। यदि वे S से शुरू करते हुए बारी-बारी से एक-एक मिनट काम करते हैं, तो वे 30 मिनट में कुल कितने पेज टाइप कर सकते हैं?

(1) 37 1/2 ✔

(2) 15

(3) 45

(4) 25

Q.120 A invests ₹30,000 and B invests ₹50,000 in a business. After 4 months, C joins with ₹70,000. If the total profit after a year is ₹38,000, what is C's share in the profit?

A ₹30,000 और B ₹50,000 एक व्यवसाय में निवेश करते हैं। 4 महीने बाद, C ₹70,000 के साथ जुड़ता है। यदि एक वर्ष के बाद कुल लाभ ₹38,000 है, तो लाभ में C का हिस्सा कितना है?

(1) ₹11,500

(2) ₹12,250

(3) ₹14,000 ✔

(4) ₹10,000

English Language and Comprehension

Q.121 Choose the correct one word substitution for the underlined segment.
The speaker addressed the issue in a manner that softened its harshness.

(1) evasively

(2) cynically

(3) sarcastically

(4) euphemistically ✔

Q.122 Rearrange the following segments to form a meaningful sentence.
A. failed to consider was
B. what the initial analysis
C. the broader methodological implication
D. of the findings

(1) BCAD

(2) BACD ✔

(3) CBAD

(4) ABCD

Q.123 Select the option that can be used as a one-word substitute for the underlined group of words/phrase in the given sentence.
As the athlete fell to the ground, clutching his injured leg, his face twisted in intense physical or emotional pain.

(1) lethargy

(2) apathy

(3) agony ✔

(4) euphoria

Q.124 Rearrange the following segments to form a meaningful sentence.
A. substantially revised
B. in response to critical feedback
C. the theoretical framework
D. the author

(1) BDAC
(2) BADC
(3) **DACB ✔**
(4) DBAC

Q.125 Select the most appropriate option to fill in the blank.
I heard a dog howling in ___ forest.

(1) a
(2) an
(3) **the ✔**
(4) No article required

Q.126 Select the most appropriate option to fill in the blank.
She is always _____ time when it comes to submitting her assignments.

(1) in
(2) **on ✔**
(3) by
(4) at

Q.127 Select the most appropriate article to fill in the blank. If no article is needed, select 'No article required'.
She was looking for ____ best way to solve the problem efficiently.

(1) No article required
(2) **the ✔**
(3) an
(4) a

Q.128 Parts of a sentence are given below. Arrange the parts in the correct order to form a meaningful and coherent sentence.
Ensuring each bed received ample sun light (O)/ With careful planning (P)/ By capturing the essence of spring (Q)/ The gardener planted an array of seasonal flowers (R)/ Which led to vibrant and thriving landscape (S)

(1) OPRSQ
(2) PSORQ
(3) **RPSOQ ✔**
(4) PROSQ

QuickSarkari.com | WhatsApp Channel | Telegram: t.me/quick_sarkari

Q.129 Choose the most appropriate option to complete the sentence.
The professor explained the complex theory _____, making it accessible to even the least experienced students.

(1) vaguely
(2) **clearly ✔**
(3) sarcastically
(4) briefly

Q.130 Choose the option that best converts the sentence into its active voice:
The children were being waited for by the teacher anxiously at the entrance of the auditorium.

(1) The teacher waits for the children anxiously at the entrance of the auditorium.
(2) **The teacher was waiting for the children anxiously at the entrance of the auditorium. ✔**
(3) The teacher has been waiting for the children anxiously at the auditorium entrance.
(4) The teacher is waiting for the children anxiously at the entrance of the auditorium.

Q.131 Convert the following sentence from Active to Passive Voice.
They are installing solar panels on the school roof.

(1) Solar panels are to be installed on the school roof.
(2) Solar panels have been installed on the school roof.
(3) **Solar panels are being installed on the school roof. ✔**
(4) Solar panels were installed on the school roof.

Q.132 Select the option where the given sentence has been correctly converted to its Active form.
Mojo should be examined by a doctor.

(1) A doctor is examining Mojo.
(2) A doctor had been examining Mojo.
(3) **A doctor should examine Mojo. ✔**
(4) Let Mojo be examined by a doctor.

Q.133 From the options provided, select the word that best replaces the underlined group of words in the sentence. The state of being aware of and understanding one's own feelings is important for emotional well-being.

(1) cognition
(2) sentience
(3) **introspection ✔**
(4) self-awareness

Q.134 Select the option where the given sentence has ben correctly converted to its Passive form.
The plumber was repairing the taps and waterlines in our house.

(1) The taps and waterlines in our house are going to be repaired by the plumber.
(2) The taps and waterlines in our house will be repaired by the plumber.
(3) **The taps and waterlines in our house were being repaired by the plumber. ✔**
(4) The plumber had repaired the taps and waterlines in our house.

Q.135 Select the most appropriate option to fill in the given blank for reported speech:
Indirect: The teacher asked if I liked the book.
Direct: The teacher asked, "___ like the book?"

(1) Do I
(2) Did I
(3) **Did you ✔**
(4) Have you

Q.136 Choose the sentence that uses the correct form of the future tense from the options given below.

(1) If the proposal is approved, we will have implement the changes starting next quarter.
(2) If the proposal is approved, we will implemented the changes starting next quarter.
(3) If the proposal is approved, we will have been implemented the changes starting the next quarter.
(4) **If the proposal is approved, we will be implementing the changes starting next quarter. ✔**

Q.137 Choose the correct option to complete the sentence.
The scientist's hypothesis was considered _____ at first, but later research confirmed its validity.

(1) reductive
(2) incoherent
(3) obsolete
(4) **contentious ✔**

Q.138 Select the word that means the same as the given underlined group of words.
His speech was filled with empty words and exaggerated claims lacking real substance, impressing few thoughtful listeners.

(1) Originality
(2) Insight
(3) **Platitude ✔**
(4) Precision

Q.139 Rearrange the following segments to form a meaningful sentence. Segment C is the anchor and must remain in the same position.
A. international editorial board
B. review was the manuscript
C. accepted for publication by the
D. only after extensive interdisciplinary

(1) BACD
(2) ADCB
(3) ABCD
(4) **DBCA ✔**

Q.140 Pick the correct option to complete the sentence.
Despite her _____ appearance, the elderly woman possessed remarkable strength, astonishing those who underestimated her resilience.

(1) insipid
(2) audacious
(3) **feeble ✔**
(4) cumbersome

Q.141 Choose the most appropriate antonym of the word "elaborate" given in the sentence.
She gave an elaborate explanation of the procedure.

(1) Simple ✔
(2) Detailed
(3) Lengthy
(4) Careful

Q.142 Identify the ANTONYM of the highlighted word.
The investigation revealed his duplicity in handling confidential data.

(1) Impulsiveness
(2) Negligence
(3) Indiscretion
(4) Candour ✔

Q.143 Identify the antonym of the underlined word as used in the sentence.
The scholar adopted a tentative approach while interpreting the preliminary data.

(1) hesitant
(2) assertive ✔
(3) cautious
(4) provisional

Q.144 Select the INCORRECTLY spelt word.

(1) Complexion
(2) Diffidance ✔
(3) Oblivion
(4) Defendant

Q.145 Rectify the sentence by selecting the correct spelling from the options.
He was detemind to track down the hidden spot where he once had the best ramen of his life.

(1) determiined
(2) determined ✔
(3) determinid
(4) determind

Q.146 Choose the correct option that can replace the highlighted text without changing the meaning of the sentence. After a long day at work, I was completely overwhelmed with all the responsibilities I had to handle.

(1) In a pickle
(2) In hot water
(3) In up to my ears ✔
(4) A walking disaster

QuickSarkari.com | WhatsApp Channel | Telegram: t.me/quick_sarkari

Q.147 Select the most appropriate idiom that can substitute the underlined segment in the given sentence.
Despite their promises, the officials failed to take any action on the complaints.

(1) turned over a new leaf
(2) sat on their hands ✔
(3) took a back seat
(4) beat around the bush

Q.148 Choose the most appropriate synonym of the highlighted word.
Despite the harsh criticism, the artist remained imperturbable throughout the gallery opening.

(1) Pompous
(2) Luscious
(3) Agitated
(4) Composed ✔

Q.149 Select the most appropriate idiom that can substitute the highlighted segment in the given sentence.
The female characters portrayed by William Wordsworth in his works are full of natural cheerfulness and the vivacity of healthy youth.

(1) greenhorns
(2) long faces
(3) animal spirits ✔
(4) blue blood

Q.150 Select the correct proverb to substitute the underlined word segment in the given sentence.
When the scientist revealed that the cure had been discovered by accident during a completely unrelated experiment, everyone agreed that real-life events can be more surprising and unbelievable than anything one could imagine.

(1) truth is stranger than fiction ✔
(2) Rome wasn't built in one day
(3) seeing is believing
(4) a lie can travel halfway around the world while the truth is still putting on its shoes

---

Q.151 Which advantage of renewable energy is mentioned in the passage?

(1) Reducing dependence on scientific innovation worldwide
(2) Producing lower carbon emissions during energy generation ✔
(3) Preventing all forms of industrial environmental damage
(4) Eliminating the need for technological infrastructure entirely

---

Q.152 What can be inferred from the passage about developing countries?

(1) They produce more renewable energy than developed nations.
(2) They completely reject the use of renewable technologies.
(3) They may face financial difficulties in energy transition. ✔
(4) They avoid investing in environmental sustainability programs.

Q.153 Which of the following best expresses the central theme of the passage?

(1) The historical development of fossil fuel industries

(2) The environmental effects of urban population growth

(3) The political influence of industrial corporations

(4) The global transition toward renewable energy sources ✔

Q.154 What is the tone of the passage?

(1) Emotional and nostalgic

(2) Humorous and satirical

(3) Analytical and informative ✔

(4) Aggressive and dismissive

Q.155 Which of the following is the most appropriate title for the passage?

(1) Renewable Energy and Sustainable Development ✔

(2) Fossil Fuels in Ancient Human Civilizations

(3) Technological Failures in Modern Transportation

(4) The Decline of Global Industrial Economies

Q.156 According to the passage, what is one consequence of strict censorship within society?

(1) It protects democratic institutions from emotional social instability

(2) It strengthens the ability of readers to evaluate difficult arguments

(3) It encourages citizens to participate more actively in public debate

(4) It produces conformity while weakening reflective intellectual growth ✔

Q.157 Which inference can most reasonably be drawn from the passage?

(1) Democratic societies function effectively only through complete agreement

(2) Independent judgment develops naturally without public discussion or debate

(3) Offensive opinions inevitably weaken social and educational institutions

(4) Intellectual maturity depends partly upon encountering challenging ideas ✔

Q.158 Select the most appropriate title for the passage.

(1) Intellectual Freedom and the Responsibilities of Independent Thought ✔

(2) The Psychological Dangers of Controversial Public Discussions

(3) Political Authority and the Decline of Public Moral Discipline

(4) How Social Pressure Shapes Individual Patterns of Reading

---

Q.159 Which broader theme underlies the discussion of censorship in the passage?

(1) Truth emerges more clearly through open examination than suppression ✔

(2) Intellectual authority should remain limited to educated elites

(3) Democratic institutions depend primarily upon cultural uniformity

(4) Public disagreement weakens social order and political cooperation

---

Q.160 Which option best summarises the passage?

(1) Public disagreement becomes dangerous when individuals lack formal moral and political discipline consistently.

(2) Historical progress depends primarily upon rejecting established institutions and inherited cultural traditions completely.

(3) Readers should avoid offensive opinions because intellectual confusion weakens responsible public behaviour significantly.

(4) Open intellectual exchange strengthens judgment, education, and democratic culture despite the risks of controversy. ✔

Hindi Language and Comprehension

Q.161 पिता ने पुत्र .....समझाया ।
उपयुक्त वाक्य में रिक्त स्थान की पूर्ति के लिए उचित कारक शब्द का चयन करें –

(1) को ✔

(2) में

(3) की

(4) के

Q.162 उचित विशेषण से वाक्य पूर्ण करें।
बच्चे ने _____ दूध पी लिया।

(1) चमकदार

(2) चार सेर ✔

(3) मीठी

(4) एक

Q.163 रेखांकित शब्द के पर्यायवाची हेतु उचित विकल्प चयनित करें ।
तालाब में मछली होती है।

(1) चिड़िया

(2) हाथी

(3) घोड़ा

(4) मत्स्य ✔

Q.164 सर्वोचित शक्तिबोधक क्रिया शब्द से दिए गए वाक्य का रिक्त स्थान पूर्ण करें-- दण्डी के अनुसार शक्ति के बिना यथार्थ काव्य की रचना हो ही नहीं .....।

(1) चुकेगी

(2) सकती ✔

(3) पाती

(4) पायेगी

Q.165 दिये गए वाक्य के रेखांकित शब्द का उपयुक्त विलोम शब्द चुनिए – समाज कल्याण विभाग ने मंदबुद्धि बालकों के लिए अनेक प्रशिक्षण संस्थाओं का निर्माण किया है।

(1) अल्प बुद्धि

(2) दुष्टबुद्धि

(3) कुशाग्र बुद्धि ✔

(4) शठबुद्धि

Q.166 उचित क्रिया-विशेषण शब्द से वाक्य पूरा कीजिए।
मेहमानों ने दावत में सब कुछ _____ खा लिया।

(1) भरपेट ✔
(2) भीतर
(3) ठीक
(4) अब

Q.167 निम्नलिखित वाक्य में विशेषण का प्रयोग कर वाक्य पूर्ण करें:- यह फर्श है

(1) प्रयुक्त
(2) बच्चा
(3) लोग
(4) खुरदरा ✔

Q.168 निम्नलिखित वाक्यांश के लिए सार्थक शब्द बताइए।
'धर्म को चलानेवाले'

(1) धर्मप्रवर्तक ✔
(2) पुजारी
(3) ब्राह्मण
(4) आस्तिक

Q.169 'दिन .....बहुत गर्मी थी।' इस वाक्य को पूर्ण करने के लिए उपयुक्त कारक चिह्न चुनें -

(1) पर
(2) में ✔
(3) का
(4) को

Q.170 निम्न वाक्य के रिक्त स्थान को उचित विशेषण शब्द से पूर्ण करें - 'पिछले साल बहुत वर्षा होने के कारण फसल अधिक हुई ।'

(1) मधुर
(2) सुस्त
(3) बड़ा
(4) अच्छी ✔

Q.171 निम्नलिखित अनुच्छेद के वाक्य को उचित क्रम में लिखें जिससे एक सही अनुच्छेद का निर्माण हो-
1. सांस्कृतिक आदान-प्रदान
2. व्यक्ति, समूह या देश संपर्क में
3. स्वाभाविक है, जब भी दो
4. आते हैं तो दोनों एक दूसरे से प्रभावित होते हैं

(1) 1, 3, 2, 4 ✔
(2) 3, 4, 2, 1
(3) 4, 1, 3, 2
(4) 2, 1, 4, 3

Q.172 निम्नलिखित वाक्यांश के लिए सही सार्थक शब्द का चयन करें।
जो किसी एक ही विषय में पारंगत हो और उसी के अध्ययन-मनन में जीवन समर्पित कर दे

(1) तत्त्ववेत्ता
(2) एकनिष्ठ
(3) विशेषज्ञ ✔
(4) पंडित

Q.173 दिए गए विकल्पों में से विशेषण के उचित भेद को चुन कर वाक्य पूर्ण करें - विद्यार्थियों को अधिक परिश्रम से सफलता की ऊँचाइयाँ प्राप्त होती हैं। वाक्य में ..... विशेषण है।

(1) सार्वनामिक
(2) गुणवाचक
(3) परिमाण ✔
(4) संख्यावाचक

Q.174 निम्नलिखित अनुच्छेद के वाक्य को उचित क्रम में लिखें जिससे एक सही अनुच्छेद का निर्माण हो-
1. ज्ञान या विज्ञान नहीं
2. दुनिया का कोई ऐसा
3. से खोज न की हो
4. जिसकी भारतीयों ने गंभीरता

(1) 3, 1, 2, 4
(2) 4, 3, 1, 2
(3) 2, 1, 4, 3 ✔
(4) 1, 4, 2, 3

Q.175 निम्नलिखित वाक्य को व्यवस्थित वाक्य बनाने के लिए उचित विकल्प का चयन कीजिए।
भाषा या जनता की भाषा प्रशासन की भाषा हो रही है आज प्रशासन की भाषा जनता की

(1) जनता की भाषा प्रशासन आज प्रशासन की भाषा जनता की भाषा या की भाषा हो रही है
(2) आज प्रशासन की भाषा प्रशासन की भाषा हो रही है जनता की भाषा या जनता की भाषा
(3) आज प्रशासन की भाषा जनता की भाषा या जनता की भाषा प्रशासन की भाषा हो रही है ✔
(4) भाषा जनता की भाषा या जनता आज प्रशासन की की भाषा प्रशासन की भाषा हो रही है

Q.176 दिए गए वाक्य में रिक्त स्थान की पूर्ति के लिए उचित क्रिया शब्द का चयन करें – कूड़ेदान में कूड़ा .....दो ।

(1) हटा
(2) फेंक ✔
(3) रखा
(4) डालना

Q.177 'बासी बचे ना कुत्ता खाये' लोकोक्ति का अर्थ क्या है?

(1) मूर्ख सभी जगह मिलते हैं
(2) सदा एक सी स्थिति
(3) दो पक्षों को आपस में भिड़ाना
(4) जरूरत अनुसार कार्य करना ✔

QuickSarkari.com | WhatsApp Channel | Telegram: t.me/quick_sarkari

Q.178 'वह ऊँट की तरह _____ है।' वाक्य में रिक्त स्थान की पूर्ति के लिए सही विशेषण पद वाला विकल्प चुनें।

(1) लंबा ✔

(2) हठी

(3) डरपोक

(4) चतुर

Q.179 'मुझे यह सूचना पत्र ----------मिल गई थी।'
वाक्य के रिक्त स्थान के लिए उपयुक्त कारक चिह्न है-

(1) को

(2) के लिए

(3) पर

(4) द्वारा ✔

Q.180 उचित विशेषण शब्द का प्रयोग कर वाक्य को पूर्ण करें- आपने कोटि की कहानी सुनाई।

(1) ऊँची

(2) उच्च ✔

(3) तुच्छ

(4) अकथनीय

Q.181 निम्नलिखित मुहावरे का अर्थ बताइए।
द्राविड़ी प्राणायाम खींचना

(1) त्वरित निर्णय लेना

(2) प्राणायाम करना

(3) व्यायाम करना

(4) सीधी बात को बहुत घुमाना ✔

Q.182 निम्नलिखित विकल्पों में से शुद्ध वतनी वाले वाक्य का चयन कीजिए।

(1) मैं आधी असतीं की कमीज़ पहनता हूँ।

(2) मैं आधी असतीन की कमीज़ पहनता हूँ।

(3) मैं आधी आस्तीन की कमीज़ पहनता हूँ। ✔

(4) मैं आधी अस्तीन की कमीज़ पहनता हूँ।

Q.183 'पता चलना' या 'जानकारी मिलना' के अर्थ में कौन-सा मुहावरा प्रयुक्त होता है?

(1) सुनगुन मिलना ✔

(2) सूखा जवाब देना

(3) सूना लगना

(4) सुई का भाला बना देना

Q.184 निम्नलिखित में से किस मुहावरे का अर्थ संगत नहीं है?

(1) फंदे में पड़ना - धोखे में होना

(2) मिट्टी पलीद करना - चमक हटना ✔

(3) सीनाजोरी करना - जबरदस्ती करना

(4) बाग-बाग होना - बहुत ख़ुश होना

Q.185 निम्नलिखित वाक्य में चिह्नित शब्द का पर्यायवाची शब्द पहचानें।
वह मेरे पिता जी का परिचित है।

(1) सदोष
(2) अभ्यागत
(3) **अभिज्ञ ✔**
(4) पारायण

Q.186 दिए गए विकल्पों में से निष्काम का सटीक विलोम शब्द चुनिए -

(1) काम
(2) संहत
(3) **सकाम ✔**
(4) बेकाम

Q.187 दिए गए वाक्य में रेखांकित शब्द के लिए विलोम होगा– वह सभी इच्छाओं से रहित है।

(1) **सहित ✔**
(2) कुपंथ
(3) घृणित
(4) कटूक्ति

Q.188 'सर्द हो जाना' मुहावरे का क्या अर्थ होता है?

(1) क्रोध में आना
(2) **डर जाना ✔**
(3) जुकाम हो जाना
(4) प्रसन्न हो जाना

Q.189 निम्नलिखित में से कौन-से वाक्य में त्रुटि है?

(1) **यह घटना हमें बहुत कुछ सिखाती हैं। ✔**
(2) हमें अपने कर्तव्यों का पालन करना चाहिए।
(3) उन्होंने मेरे अनुरोध को स्वीकार लिया।
(4) मैं तुम्हारी बात से पूरी तरह सहमत हूँ।

Q.190 'छाती पर पत्थर रखना', इस मुहावरे का क्या अर्थ होता है?

(1) **चुपचाप सहना ✔**
(2) घमंड में चूर होना
(3) कठिन काम करना
(4) बहुत क्रोध करना

Q.191 उपयुक्त गद्यांश का केंद्रीय विषय क्या है?

(1) **महाकाव्य एक काव्य-परंपरा ✔**
(2) मानव सभ्यता का उद्गम एवं विकास
(3) मानव जीवन के विविध पक्ष
(4) समाज के नैतिक मूल्य

Q.192 महाकाव्य की रचना का मुख्य उद्देश्य क्या होता है?

(1) हास्य-विनोद प्रधान निरर्थक विषयों का प्रतिपादन करना

(2) किसी विशेष युग, जाति संस्कृति और सभ्यता का चित्रण करना ✔

(3) राजनीतिक घटनाओं का चित्रण करना

(4) व्यक्तिगत महत्वाकांक्षा का वर्णन करना

Q.193 उपयुक्त गद्यांश के अनुसार महाकाव्य मानव सभ्यता का जीवंत दर्पण है क्योंकि -

(1) यह मानव सभ्यता के उद्गम से लेकर उसके विकास तक के धार्मिक विश्वासों का वर्णन करता है।

(2) यह उत्कृष्ट भाषा-शैली में रचित होता है।

(3) यह केवल काल्पनिक घटनाओं का चित्रण करता है।

(4) यह जीवन के स्थायी मूल्यों,आत्मतत्व के रहस्यों और मानव अनुभवों को शाश्वत रूप में अभिव्यक्त करता है। ✔

Q.194 निम्नलिखित में से कौन-सा 'दस्तावेज' का पर्यायवाची शब्द नहीं है?

(1) शिलालेख ✔

(2) प्रलेख

(3) तहरीर

(4) सनद

Q.195 'मानवीयता' का विलोम शब्द क्या है ?

(1) नृशंसता ✔

(2) सौम्यता

(3) उदारता

(4) मनुजता

Q.196 गद्यांश के अनुसार, शिक्षक के बिना समाज की तुलना किससे की गई है?

(1) आत्मा के बिना शरीर

(2) मस्तिष्क के बिना शरीर

(3) मन के बिना शरीर

(4) हृदय के बिना शरीर ✔

Q.197 गद्यांश के अनुसार, डॉक्टर, इंजीनियर, वैज्ञानिक जैसे व्यक्तियों को ज्ञान, दृष्टिकोण और मूल्य कौन देता है?

(1) समाज

(2) माता-पिता

(3) सरकार

(4) गुरु/शिक्षक ✔

Q.198 गद्यांश में वर्णित स्थिति के अनुसार, आज की प्रतियोगिता-प्रधान दुनिया में विद्यार्थी किस चीज की होड़ में लगे हैं?

(1) प्रथम स्थान, ऊँची नौकरियाँ और बड़ा वेतन ✔

(2) सामाजिक सेवा और नैतिकता

(3) अच्छी शिक्षा और संस्कार

(4) आध्यात्मिक ज्ञान और शांति

Q.199 गद्यांश में कहा गया है कि यदि लोग केवल धन और पद को ही अंतिम लक्ष्य मानें तो क्या होगा?

(1) शिक्षा का स्तर बढ़ेगा

(2) समाज में समानता आएगी

(3) कोई भी शिक्षक बनने का संकल्प नहीं करेगा ✔

(4) अधिक लोग शिक्षक बनना चाहेंगे

QuickSarkari.com | WhatsApp Channel | Telegram: t.me/quick_sarkari

Q.200 गद्यांश के अनुसार, डॉक्टर, इंजीनियर, वैज्ञानिक और प्रशासक जैसे व्यक्तियों के नैतिक मार्गदर्शन के लिए कौन जिम्मेदार है?

(1) सरकार

(2) समाज

(3) गुरु/शिक्षक ✔

(4) माता-पिता

Answer Key / उत्तर कुंजी

1 4	**2** 2	**3** 1	**4** 2	**5** 2	**6** 1	**7** 2	**8** 4	**9** 4	**10** 2	**11** 2	**12** 2	**13** 3	**14** 4	**15** 2
16 1	**17** 4	**18** 1	**19** 4	**20** 1	**21** 4	**22** 1	**23** 3	**24** 3	**25** 1	**26** 3	**27** 2	**28** 2	**29** 2	**30** 4
31 3	**32** 1	**33** 1	**34** 1	**35** 3	**36** 1	**37** 4	**38** 2	**39** 4	**40** 4	**41** 2	**42** 1	**43** 2	**44** 3	**45** 2
46 1	**47** 3	**48** 3	**49** 1	**50** 2	**51** 2	**52** 2	**53** 4	**54** 3	**55** 3	**56** 4	**57** 2	**58** 3	**59** 4	**60** 1
61 2	**62** 3	**63** 2	**64** 2	**65** 4	**66** 3	**67** 1	**68** 3	**69** 2	**70** 3	**71** 1	**72** 1	**73** 4	**74** 3	**75** 2
76 3	**77** 1	**78** 2	**79** 4	**80** 2	**81** 1	**82** 1	**83** 4	**84** 4	**85** 1	**86** 1	**87** 3	**88** 3	**89** 1	**90** 2
91 3	**92** 2	**93** 4	**94** 3	**95** 4	**96** 3	**97** 4	**98** 2	**99** 4	**100** 2	**101** 1	**102** 1	**103** 3	**104** 4	**105** 4
106 3	**107** 2	**108** 4	**109** 4	**110** 4	**111** 4	**112** 4	**113** 1	**114** 2	**115** 1	**116** 1	**117** 4	**118** 3	**119** 1	**120** 3
121 4	**122** 2	**123** 3	**124** 3	**125** 3	**126** 2	**127** 2	**128** 3	**129** 2	**130** 2	**131** 3	**132** 3	**133** 3	**134** 3	**135** 3
136 4	**137** 4	**138** 3	**139** 4	**140** 3	**141** 1	**142** 4	**143** 2	**144** 2	**145** 2	**146** 3	**147** 2	**148** 4	**149** 3	**150** 1
151 2	**152** 3	**153** 4	**154** 3	**155** 1	**156** 4	**157** 4	**158** 1	**159** 1	**160** 4	**161** 1	**162** 2	**163** 4	**164** 2	**165** 3
166 1	**167** 4	**168** 1	**169** 2	**170** 4	**171** 1	**172** 3	**173** 3	**174** 3	**175** 3	**176** 2	**177** 4	**178** 1	**179** 4	**180** 2
181 4	**182** 3	**183** 1	**184** 2	**185** 3	**186** 3	**187** 1	**188** 2	**189** 1	**190** 1	**191** 1	**192** 2	**193** 4	**194** 1	**195** 1
196 4	**197** 4	**198** 1	**199** 3	**200** 3										

Quick Sarkari

Thank you for studying with QuickSarkari!

Get the latest Sarkari Naukri notifications, admit cards, results, answer keys and free previous-year papers first - follow us on WhatsApp and Telegram.

Visit www.quicksarkari.com

Join our WhatsApp Channel

https://whatsapp.com/channel/0029VaxxbrREquiPoXTWM229

Join our Telegram Channel

https://t.me/quick_sarkari

Share this PDF with your friends preparing for DSSSB exams.