DSSSB PREVIOUS YEAR PAPER WITH ANSWER KEY

DSSSB Assistant Superintendent

5 July 2026 · Shift 3

डीएसएसएसबी सहायक अधीक्षक – 5 जुलाई 2026, शिफ्ट 3 का प्रश्न पत्र, उत्तर कुंजी सहित

200	120 min	1 / −0.25	EN + HI
Questions / प्रश्न	Duration / समय	Marks per Q / अंक	Language / भाषा

Sections: General Intelligence and Reasoning Ability, General Awareness, Arithmetical and Numerical Ability, English Language and Comprehension, Hindi Language and Comprehension

INSIDE THIS PDF / इस PDF में

Question Paper in English + Hindi with Answer Key (correct option marked in green) + answer table Page 2–41
प्रश्न पत्र अंग्रेज़ी + हिंदी में, उत्तर कुंजी सहित (सही विकल्प हरे रंग में) + उत्तर तालिका

HOW TO USE THIS PAPER / इस पेपर का उपयोग कैसे करें

1. Attempt the paper first as a timed online mock test (link below).
   पहले नीचे दिए लिंक से इसे टाइमर के साथ ऑनलाइन मॉक टेस्ट के रूप में हल करें।
2. Check your score, section-wise analysis and solutions online.
   ऑनलाइन अपना स्कोर, खंड-वार विश्लेषण और हल देखें।
3. Use this PDF for revision. Correct answers are shown in green.
   दोहराने के लिए इस PDF का उपयोग करें। सही उत्तर हरे रंग में दिए गए हैं।

Attempt this paper as a FREE online mock test

इस पेपर को फ्री ऑनलाइन मॉक टेस्ट के रूप में हल करें – टाइमर, स्कोर और हल के साथ

https://quicksarkari.com/dsssb-assistant-superintendent-05-july-2026-shift-3-mock-test/

All DSSSB Assistant Superintendent papers and mock tests: **quicksarkari.com/dsssb-mock-test/#assistant-superintendent**

Join WhatsApp Channel | Join Telegram Channel

DSSSB Assistant Superintendent – Question Paper (English + Hindi)

DSSSB सहायक अधीक्षक – प्रश्न पत्र (अंग्रेज़ी + हिंदी)

Exam held on 5 July 2026, Shift 3 · 200 questions · correct answers marked ✔ in green
परीक्षा तिथि 5 जुलाई 2026, शिफ्ट 3 · 200 प्रश्न · सही उत्तर हरे रंग में ✔ से चिह्नित

> The official paper for this shift was in English. The Hindi version of each question is a translation prepared by QuickSarkari; the language-section questions are shown as asked.
> इस शिफ्ट का आधिकारिक प्रश्न पत्र अंग्रेज़ी में था। प्रत्येक प्रश्न का हिंदी संस्करण QuickSarkari द्वारा तैयार किया गया अनुवाद है; भाषा खंड के प्रश्न मूल रूप में दिए गए हैं।

General Intelligence and Reasoning Ability

Q.1 In a certain code language, 'EAST' is coded as 'K6#8' and 'BEST' is coded as 'O68#'.
What is the code for 'B' in the given code language?
एक निश्चित कूट भाषा में, 'EAST' को 'K6#8' के रूप में कूटबद्ध किया जाता है और 'BEST' को 'O68#' के रूप में कूटबद्ध किया जाता है।
दी गई कूट भाषा में 'B' के लिए क्या कूट है?

(1) #
(2) 6
(3) 8
(4) O ✔

Q.2 In a certain code language, 'LODE' is coded as '7154' and 'OCDE' is coded as '1549'. What is the code for 'C' in the given code language?
एक निश्चित कूट भाषा में, 'LODE' को '7154' के रूप में कूटबद्ध किया जाता है और 'OCDE' को '1549' के रूप में कूटबद्ध किया जाता है। दी गई कूट भाषा में 'C' के लिए क्या कूट है?

(1) 1
(2) 9 ✔
(3) 5
(4) 4

Q.3 Seven people, A, B, C, D, L, M and N, are sitting in a row, facing north.
Only C sits to the left of M. Only four people sit between C and N. Only A sits between L and D, and L is not an immediate neighbor of N.
Who sits at the extreme right of the row?
सात व्यक्ति, A, B, C, D, L, M और N, उत्तर की ओर मुख करके एक पंक्ति में बैठे हैं।
केवल C, M के बाईं ओर बैठा है। C और N के बीच केवल चार व्यक्ति बैठे हैं। L और D के बीच केवल A बैठा है, और L, N का निकटतम पड़ोसी नहीं है।
पंक्ति के सबसे दाएँ छोर पर कौन बैठा है?

(1) M
(2) L
(3) B ✔
(4) A

Q.4 Select the pair that follows the same pattern as that followed by the two pairs given below. Both pairs follow the same pattern.
BKD : DOI JPR : LTW

उस युग्म का चयन करें जो उसी पैटर्न का अनुसरण करता है जिसका अनुसरण नीचे दिए गए दो युग्मों द्वारा किया जाता है। दोनों युग्म एक ही पैटर्न का अनुसरण करते हैं।
BKD : DOI JPR : LTW

(1) SVJ : WTM
(2) TKL : VOQ ✔
(3) QSD : UQH
(4) RUG : VRL

Q.5 Each of P, Q, R, S, T, U, and V has a meeting on a different day of the week from Monday to Sunday. P has a meeting on Friday. There are three meetings between P and R. T has a meeting on the day immediately after R. U's meeting is on a day before V, but after S. Only one person has a meeting between S and T. Which day does V have a meeting?

P, Q, R, S, T, U और V में से प्रत्येक की सोमवार से रविवार तक सप्ताह के एक अलग दिन मीटिंग है। P की मीटिंग शुक्रवार को है। P और R के बीच तीन मीटिंग हैं। T की मीटिंग R के ठीक बाद वाले दिन है। U की मीटिंग V से पहले, किंतु S के बाद वाले किसी दिन है। S और T के बीच केवल एक व्यक्ति की मीटिंग है। V की मीटिंग किस दिन है?

(1) Saturday / शनिवार
(2) Tuesday / मंगलवार
(3) Sunday / रविवार ✔
(4) Monday / सोमवार

Q.6 This question is based on the following words.
CSE PAJ QXD VKL If in each of the words, each letter is changed to the next letter in the English alphabetical order, how many words thus formed will have vowels?

यह प्रश्न निम्नलिखित शब्दों पर आधारित है।
CSE PAJ QXD VKL यदि प्रत्येक शब्द में, प्रत्येक अक्षर को अंग्रेज़ी वर्णमाला क्रम में उसके अगले अक्षर से बदल दिया जाए, तो इस प्रकार बने कितने शब्दों में स्वर होंगे?

(1) Two / दो
(2) Three / तीन
(3) Four / चार
(4) One / एक ✔

Q.7 A, B, C, D, Q, R, and S are sitting in a row facing the north. No one sits to the right of Q. Only three people sit between Q and D. Only two people sit between D and C. B sits third to the left of A. R sits to the immediate right of A. How many people sit between S and C?

A, B, C, D, Q, R और S उत्तर की ओर मुख करके एक पंक्ति में बैठे हैं। Q के दाईं ओर कोई नहीं बैठा है। Q और D के बीच केवल तीन व्यक्ति बैठे हैं। D और C के बीच केवल दो व्यक्ति बैठे हैं। B, A के बाईं ओर तीसरे स्थान पर बैठा है। R, A के ठीक दाईं ओर बैठा है। S और C के बीच कितने व्यक्ति बैठे हैं?

(1) One / एक
(2) Four / चार
(3) Two / दो
(4) Three / तीन ✔

Q.8 This question is based on the following letter clusters.
BXG RLW SHP ZXC If in each of the letter clusters, each letter is changed to the preceding letter in the English alphabetical order, how many letter clusters thus formed will have no vowel?

यह प्रश्न निम्नलिखित अक्षर-समूहों पर आधारित है।
BXG RLW SHP ZXC यदि प्रत्येक अक्षर-समूह में, प्रत्येक अक्षर को अंग्रेज़ी वर्णमाला क्रम में उसके पूर्ववर्ती अक्षर से बदल दिया जाए, तो इस प्रकार बने कितने अक्षर-समूहों में कोई स्वर नहीं होगा?

(1) Two / दो ✔
(2) One / एक
(3) Three / तीन
(4) Four / चार

Q.9 Which of the following letter-clusters should replace # and % so that the pattern and relationship followed between the letter-cluster pair on the left side of :: is the same as that on the right side of ::?
: EGI :: DTE : %

निम्नलिखित में से कौन-से अक्षर-समूह # और % को प्रतिस्थापित करेंगे ताकि :: के बाईं ओर के अक्षर-समूह युग्म के बीच अनुसरण किया गया पैटर्न और संबंध वही हो जो :: के दाईं ओर है?
: EGI :: DTE : %

(1) # = DIL , % = CRB
(2) # = DJK , % = ESA
(3) # = FJL , % = CSB
(4) # = FIL , % = CRB ✔

Q.10 Each vowel in the word FUSTIGATORS is changed to the second letter following it in the English alphabetical order AND each consonant is changed to the second letter preceding it in the English alphabetical order. Which of the following letters will appear exactly thrice in the group of letters thus formed?

शब्द FUSTIGATORS में प्रत्येक स्वर को अंग्रेज़ी वर्णमाला क्रम में उसके बाद आने वाले दूसरे अक्षर से बदल दिया जाता है और प्रत्येक व्यंजन को अंग्रेज़ी वर्णमाला क्रम में उससे पहले आने वाले दूसरे अक्षर से बदल दिया जाता है। इस प्रकार बने अक्षरों के समूह में निम्नलिखित में से कौन-सा अक्षर ठीक तीन बार आएगा?

(1) W
(2) K
(3) Q ✔
(4) R

Q.11 This question is based on the given letter-clusters.
TED BUK RAT LOT In each of the letter-clusters, each vowel is changed to the letter immediately following it in the English alphabetical order and each consonant is changed to the letter immediately preceding it in the English alphabetical order. In how many letter- clusters, thus formed, will no vowel appear?

यह प्रश्न दिए गए अक्षर-समूहों पर आधारित है।
TED BUK RAT LOT प्रत्येक अक्षर-समूह में, प्रत्येक स्वर को अंग्रेज़ी वर्णमाला क्रम में उसके ठीक बाद वाले अक्षर से बदल दिया जाता है और प्रत्येक व्यंजन को अंग्रेज़ी वर्णमाला क्रम में उसके ठीक पहले वाले अक्षर से बदल दिया जाता है। इस प्रकार बने कितने अक्षर-समूहों में कोई स्वर नहीं आएगा?

(1) Two / दो
(2) One / एक
(3) Three / तीन ✔
(4) Four / चार

Q.12 Seven boxes A, B, C, D, E, F and G are kept one over the other but not necessarily in the same order. Only five boxes are kept below A. Only three boxes are kept below B. E is kept immediately below G but above C. F is not kept above D. How many boxes are kept below F?

सात बक्से A, B, C, D, E, F और G एक के ऊपर एक रखे गए हैं, परंतु आवश्यक नहीं कि इसी क्रम में हों। A के नीचे केवल पाँच बक्से रखे गए हैं। B के नीचे केवल तीन बक्से रखे गए हैं। E को G के ठीक नीचे किंतु C के ऊपर रखा गया है। F को D के ऊपर नहीं रखा गया है।
F के नीचे कितने बक्से रखे गए हैं?

(1) Three / तीन
(2) Two / दो
(3) One / एक
(4) Four / चार ✔

Q.13 In a certain code language, 'A + B' means 'A is the mother of B', 'A – B' means 'A is the brother of B', 'A × B' means 'A is the wife of B' and 'A ÷ B' means 'A is the father of B'.
How is M related to Q if 'M + N × O ÷ P – Q'?

एक निश्चित कूट भाषा में, 'A + B' का अर्थ है 'A, B की माता है', 'A – B' का अर्थ है 'A, B का भाई है', 'A × B' का अर्थ है 'A, B की पत्नी है' और 'A ÷ B' का अर्थ है 'A, B का पिता है'।
यदि 'M + N × O ÷ P – Q' है, तो M का Q से क्या संबंध है?

(1) Father's sister / पिता की बहन
(2) Mother's mother / माता की माता ✔
(3) Father's mother / पिता की माता
(4) Mother's sister / माता की बहन

Q.14 Refer to the following series and answer the question that follows. Counting to be done from left to right only. (Left) F C S L S ? & R = Z < E X @ V K A # A W (Right)
How many such symbols are there, each of which is immediately preceded by a consonant and also immediately followed by a consonant?

निम्नलिखित श्रृंखला को देखें और उसके बाद दिए गए प्रश्न का उत्तर दें। गिनती केवल बाएँ से दाएँ की जानी है।
(बाएँ) F C S L S ? & R = Z < E X @ V K A # A W (दाएँ)
ऐसे कितने प्रतीक हैं, जिनमें से प्रत्येक के ठीक पहले एक व्यंजन है और ठीक बाद भी एक व्यंजन है?

(1) Four / चार
(2) Two / दो ✔
(3) One / एक
(4) Three / तीन

Q.15 LM 8 is related to IO 27 in a certain way. In the same way, DV 11 is related to AX 30. To which of the following is RG 3 related, following the same logic?

LM 8 एक निश्चित प्रकार से IO 27 से संबंधित है। उसी प्रकार, DV 11, AX 30 से संबंधित है। समान तर्क का अनुसरण करते हुए, RG 3 निम्नलिखित में से किससे संबंधित है?

(1) RO 20
(2) OO 18
(3) ER 12
(4) OI 22 ✔

Q.16 R is the brother of S. S is the daughter of T. T is the wife of G. G is the father of H. How is R related to H?
R, S का भाई है। S, T की पुत्री है। T, G की पत्नी है। G, H का पिता है। R का H से क्या संबंध है?

(1) Brother's wife's father / भाई की पत्नी का पिता
(2) **Brother / भाई ✔**
(3) Brother's wife's brother / भाई की पत्नी का भाई
(4) Brother's wife / भाई की पत्नी

Q.17 Seven boxes G, H, I, J, K, C and D are kept one over the other but not necessarily in the same order. Only four boxes are kept between J and H. Only G is kept above J. Only two boxes are kept between K and I. D is kept immediately above C. I is not kept immediately above D. Which box is kept fourth from the top?
सात बक्से G, H, I, J, K, C और D एक के ऊपर एक रखे गए हैं, परंतु आवश्यक नहीं कि इसी क्रम में हों। J और H के बीच केवल चार बक्से रखे गए हैं। J के ऊपर केवल G रखा गया है। K और I के बीच केवल दो बक्से रखे गए हैं। D को C के ठीक ऊपर रखा गया है।
I को D के ठीक ऊपर नहीं रखा गया है। ऊपर से चौथे स्थान पर कौन-सा बक्सा रखा गया है?

(1) H
(2) I
(3) J
(4) **D ✔**

Q.18 Seven boxes, Q, R, S, T, G, H and I, are kept one over the other, but not necessarily in the same order. Only T is kept above G. Only two boxes are kept between G and R. Only S is kept below Q. Only two boxes are kept between S and H.
How many boxes are kept between I and S?
सात बक्से, Q, R, S, T, G, H और I, एक के ऊपर एक रखे गए हैं, परंतु आवश्यक नहीं कि इसी क्रम में हों।
G के ऊपर केवल T रखा गया है। G और R के बीच केवल दो बक्से रखे गए हैं। Q के नीचे केवल S रखा गया है। S और H के बीच केवल दो बक्से रखे गए हैं।
I और S के बीच कितने बक्से रखे गए हैं?

(1) Two / दो
(2) **Three / तीन ✔**
(3) One / एक
(4) None / कोई नहीं

Q.19 This question is based on the following words.
(Left) LOT ZAP CRY TIP (Right)
How many letters are there in the English alphabetical series between the second letter of the first word from the right and the first letter of the first word from the left?
यह प्रश्न निम्नलिखित शब्दों पर आधारित है।
(बाएँ) LOT ZAP CRY TIP (दाएँ)
अंग्रेज़ी वर्णमाला श्रृंखला में दाएँ से पहले शब्द के दूसरे अक्षर और बाएँ से पहले शब्द के पहले अक्षर के बीच कितने अक्षर हैं?

(1) Four / चार
(2) One / एक
(3) **Two / दो ✔**
(4) Three / तीन

Q.20 Each vowel in the word BEDWARF is changed to the letter immediately following it in the English alphabetical order and each consonant is changed to the letter immediately preceding it in the English alphabetical order. How many letters will appear exactly twice in the group of letters thus formed?

शब्द BEDWARF में प्रत्येक स्वर को अंग्रेज़ी वर्णमाला क्रम में उसके ठीक बाद वाले अक्षर से बदल दिया जाता है और प्रत्येक व्यंजन को अंग्रेज़ी वर्णमाला क्रम में उसके ठीक पहले वाले अक्षर से बदल दिया जाता है। इस प्रकार बने अक्षरों के समूह में कितने अक्षर ठीक दो बार आएँगे?

(1) Two / दो

(2) Zero / शून्य ✔

(3) One / एक

(4) Three / तीन

Q.21 Select the option figure in which the given figure (X) is embedded as its part (rotation is NOT allowed).

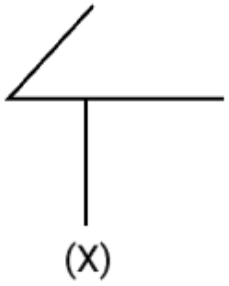

उस विकल्प आकृति का चयन करें जिसमें दी गई आकृति (X) उसके भाग के रूप में निहित है (घुमाने की अनुमति नहीं है)।

(1) 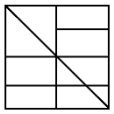

(2) 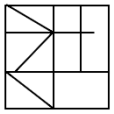

(3) 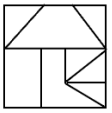 ✔

(4) 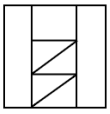

Q.22 If 1 is added to each odd digit and 3 is subtracted from each even digit in the number 3614785, what will the difference between the highest and lowest digits in the number thus formed be?

यदि संख्या 3614785 में प्रत्येक विषम अंक में 1 जोड़ा जाए और प्रत्येक सम अंक में से 3 घटाया जाए, तो इस प्रकार बनी संख्या में सबसे बड़े और सबसे छोटे अंकों के बीच का अंतर क्या होगा?

(1) 5

(2) 7 ✔

(3) 6

(4) 8

QuickSarkari.com | WhatsApp Channel | Telegram: t.me/quick_sarkari

Q.23 If 1 is added to each odd digit and 2 is subtracted from each even digit in the number 7413685, what will be the sum of the digits that are second from the left and second from the right of the new number thus formed?

यदि संख्या 7413685 में प्रत्येक विषम अंक में 1 जोड़ा जाए और प्रत्येक सम अंक में से 2 घटाया जाए, तो इस प्रकार बनी नई संख्या में बाएँ से दूसरे और दाएँ से दूसरे अंकों का योग क्या होगा?

(1) 8 ✔
(2) 7
(3) 9
(4) 6

Q.24 Based on the English alphabetical order, three of the following four letter-clusters are alike in a certain way and thus form a group. Which letter-cluster DOES NOT belong to that group?
(Note: The odd one out is not based on the number of consonants/vowels or their position in the letter-cluster.)

अंग्रेज़ी वर्णमाला क्रम के आधार पर, निम्नलिखित चार अक्षर-समूहों में से तीन किसी निश्चित प्रकार से एकसमान हैं और इस प्रकार एक समूह बनाते हैं। कौन-सा अक्षर-समूह उस समूह से संबंधित नहीं है?
(ध्यान दें: असंगत अक्षर-समूह, उस अक्षर-समूह में व्यंजनों/स्वरों की संख्या या उनके स्थान पर आधारित नहीं है।)

(1) DZP ✔
(2) RNG
(3) HDW
(4) QMF

Q.25 If 'A' stands for '÷', 'B' stands for '×', 'C' stands for '+' and 'D' stands for '−', then what will come in place of the question mark (?) in the following equation?
25 C 47 D 25 B 30 A 50 = ?

यदि 'A' का अर्थ '÷', 'B' का अर्थ '×', 'C' का अर्थ '+' और 'D' का अर्थ '−' है, तो निम्नलिखित समीकरण में प्रश्न चिह्न (?) के स्थान पर क्या आएगा?
25 C 47 D 25 B 30 A 50 = ?

(1) 59
(2) 58
(3) 57 ✔
(4) 55

Q.26 If 1 is added to each odd digit and 2 is subtracted from each even digit in the number 5321867, which of the following digits will be second from the left?

यदि संख्या 5321867 में प्रत्येक विषम अंक में 1 जोड़ा जाए और प्रत्येक सम अंक में से 2 घटाया जाए, तो निम्नलिखित में से कौन-सा अंक बाएँ से दूसरा होगा?

(1) 8
(2) 4 ✔
(3) 6
(4) 0

Q.27 Based on the English alphabetical order, three of the following four letter-clusters are alike in a certain way and thus form a group. Which letter-cluster DOES NOT belong to that group? (Note: The odd one out is not based on the number of consonants/vowels or their position in the letter-cluster.)

अंग्रेज़ी वर्णमाला क्रम के आधार पर, निम्नलिखित चार अक्षर-समूहों में से तीन किसी निश्चित प्रकार से एकसमान हैं और इस प्रकार एक समूह बनाते हैं। कौन-सा अक्षर-समूह उस समूह से संबंधित नहीं है? (ध्यान दें: असंगत अक्षर-समूह, उस अक्षर-समूह में व्यंजनों/स्वरों की संख्या या उनके स्थान पर आधारित नहीं है।)

(1) CHJ
(2) DIK
(3) TXZ ✔
(4) PUW

Q.28 What should come in place of the question mark (?) in the given series?
30, 60, 90, 180, 270, ?

दी गई श्रृंखला में प्रश्न चिह्न (?) के स्थान पर क्या आना चाहिए?
30, 60, 90, 180, 270, ?

(1) 540 ✔
(2) 360
(3) 370
(4) 450

Q.29 Based on the English alphabetical order, three of the following four are alike in a certain way and thus form a group. Which is the one that does not belong to that group?
(Note: The odd one out is not based on the number of consonants/vowels or their position in the letter cluster.)

अंग्रेज़ी वर्णमाला क्रम के आधार पर, निम्नलिखित चार में से तीन किसी निश्चित प्रकार से एकसमान हैं और इस प्रकार एक समूह बनाते हैं।
वह कौन-सा है जो उस समूह से संबंधित नहीं है?
(ध्यान दें: असंगत, उस अक्षर-समूह में व्यंजनों/स्वरों की संख्या या उनके स्थान पर आधारित नहीं है।)

(1) KPT
(2) NSW
(3) DJN ✔
(4) VAE

Q.30 Select the letter-cluster from the given options that can replace the question mark (?) in the following series. XSAN, VQCP, TOER, ? , PKIV

दिए गए विकल्पों में से उस अक्षर-समूह का चयन करें जो निम्नलिखित श्रृंखला में प्रश्न चिह्न (?) को प्रतिस्थापित कर सकता है।
XSAN, VQCP, TOER, ? , PKIV

(1) RMGT ✔
(2) SNFS
(3) SMFT
(4) RMHU

Q.31 If 2 is added to each odd digit and 1 is subtracted from each even digit in the number 7863452, then which of the following digits will be fourth from the left?

यदि संख्या 7863452 में प्रत्येक विषम अंक में 2 जोड़ा जाए और प्रत्येक सम अंक में से 1 घटाया जाए, तो निम्नलिखित में से कौन-सा अंक बाएँ से चौथा होगा?

(1) 2

(2) 4

(3) 3

(4) **5** ✔

Q.32 What should come in place of the question mark (?) in the given series based on the English alphabetical order? OIK PJL QKM RLN ?

अंग्रेज़ी वर्णमाला क्रम के आधार पर दी गई श्रृंखला में प्रश्न चिह्न (?) के स्थान पर क्या आना चाहिए?

OIK PJL QKM RLN ?

(1) SNO

(2) **SMO** ✔

(3) SNP

(4) SMP

Q.33 Identify the figure given in the options which when put in place of '?' will logically complete the series.

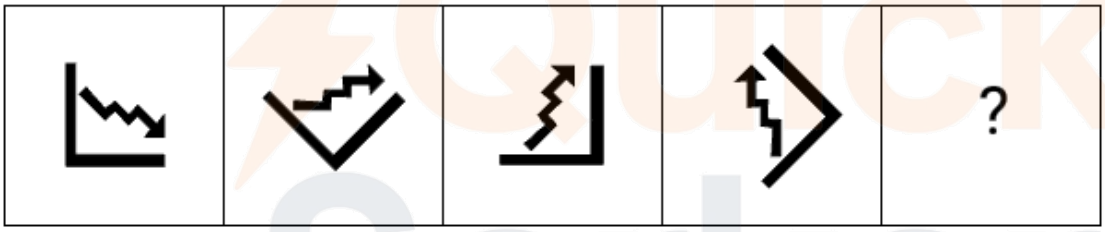

विकल्पों में दी गई उस आकृति की पहचान करें जिसे '?' के स्थान पर रखने पर श्रृंखला तार्किक रूप से पूरी हो जाएगी।

(1) 

(2) 

(3)  ✔

(4) 

Q.34 What should come in place of '?' in the given series?

2 11 45 136 ?

दी गई श्रृंखला में '?' के स्थान पर क्या आना चाहिए?

2 11 45 136 ?

(1) 272

(2) 270

(3) 271

(4) **273** ✔

Q.35 What should come in place of the question mark (?) in the given series?
62 74 89 107 128 ?
दी गई श्रृंखला में प्रश्न चिह्न (?) के स्थान पर क्या आना चाहिए?
62 74 89 107 128 ?

(1) 152 ✔
(2) 145
(3) 136
(4) 160

Q.36 In the following triad, each group of letters is related to the subsequent one following a certain logic. Select from the given options, the one which follows the same logic.
TRAD - DATR - TARD GODS - SDGO - GDOS
निम्नलिखित त्रिक में, अक्षरों का प्रत्येक समूह एक निश्चित तर्क का अनुसरण करते हुए अपने अगले समूह से संबंधित है। दिए गए विकल्पों में से उस विकल्प का चयन करें जो समान तर्क का अनुसरण करता है।
TRAD - DATR - TARD GODS - SDGO - GDOS

(1) DONE - DNOE - ENOD
(2) LIAR - RALI - LAIR ✔
(3) PEAR - RAPE - EAPR
(4) MEAN - EAMN - EANM

Q.37 Select the set in which the numbers are related in the same way as are the numbers of the following sets.
(NOTE: Operations should be performed on the whole numbers, without breaking down the numbers into its constituent digits. E.g. 13 – Operations on 13 such as adding/subtracting/multiplying etc. to 13 can be performed. Breaking down 13 into 1 and 3 and then performing mathematical operations on 1 and 3 is not allowed.)
(198,102,93)
(213,127,83)
उस समुच्चय का चयन करें जिसमें संख्याएँ उसी प्रकार संबंधित हैं जिस प्रकार निम्नलिखित समुच्चयों की संख्याएँ संबंधित हैं।
(ध्यान दें: संक्रियाएँ संख्याओं को उनके घटक अंकों में तोड़े बिना, पूर्ण संख्याओं पर की जानी चाहिए। उदाहरण के लिए, 13 – 13 पर संक्रियाएँ जैसे 13 में जोड़ना/घटाना/गुणा करना आदि की जा सकती हैं। 13 को 1 और 3 में तोड़ना और फिर 1 और 3 पर गणितीय संक्रियाएँ करना वर्जित है।)
(198,102,93)
(213,127,83)

(1) (115,85,30)
(2) (289,79,205)
(3) (227,38,192)
(4) (162,73,86) ✔

Q.38 Select the set in which the numbers are related in the same way as are the numbers of the following sets.
(NOTE : Operations should be performed on the whole numbers, without breaking down the numbers into its constituent digits. E.g. 13 – Operations on 13 such as adding / subtracting /multiplying etc. to 13 can be performed. Breaking down 13 into 1 and 3 and then performing mathematical operations on 1 and 3 is not allowed.)
(122,156,283)
(131,175,311)

उस समुच्चय का चयन करें जिसमें संख्याएँ उसी प्रकार संबंधित हैं जिस प्रकार निम्नलिखित समुच्चयों की संख्याएँ संबंधित हैं।
(ध्यान दें: संक्रियाएँ संख्याओं को उनके घटक अंकों में तोड़े बिना, पूर्ण संख्याओं पर की जानी चाहिए। उदाहरण के लिए, 13 – 13 पर संक्रियाएँ जैसे 13 में जोड़ना/घटाना/गुणा करना आदि की जा सकती हैं। 13 को 1 और 3 में तोड़ना और फिर 1 और 3 पर गणितीय संक्रियाएँ करना वर्जित है।)
(122,156,283)
(131,175,311)

(1) (126,175,305)
(2) (108,116,228)
(3) (112,183,305)
(4) (145,164,314) ✔

Q.39 6 is related to 42 following a certain logic. Following the same logic, 9 is related to 90. To which of the following is 8 related, following the same logic?
(NOTE: Operations should be performed on the whole numbers, without breaking down the numbers into their constituent digits. E.g. 13 – Operations on 13 such as adding/subtracting/multiplying etc. to 13, can be performed. Breaking down 13 into 1 and 3 and then performing mathematical operations on 1 and 3 is not allowed.)

एक निश्चित तर्क के अनुसार 6, 42 से संबंधित है। उसी तर्क के अनुसार, 9, 90 से संबंधित है। उसी तर्क का अनुसरण करते हुए, 8 निम्नलिखित में से किससे संबंधित है?
(ध्यान दें: संक्रियाएँ संख्याओं को उनके घटक अंकों में तोड़े बिना, पूर्ण संख्याओं पर की जानी चाहिए। उदाहरण के लिए, 13 – 13 पर संक्रियाएँ जैसे 13 में जोड़ना/घटाना/गुणा करना आदि की जा सकती हैं। 13 को 1 और 3 में तोड़ना और फिर 1 और 3 पर गणितीय संक्रियाएँ करना वर्जित है।)

(1) 64
(2) 72 ✔
(3) 81
(4) 80

Q.40 Select the set in which the numbers are related in the same way as are the numbers of the following sets.
(NOTE : Operations should be performed on the whole numbers, without breaking down the numbers into its constituent digits. E.g. 13 – Operations on 13 such as adding / subtracting /multiplying etc. to 13 can be performed. Breaking down 13 into 1 and 3 and then performing mathematical operations on 1 and 3 is not allowed)
(13, 15, 2)
(11, 23, 12)
उस समुच्चय का चयन करें जिसमें संख्याएँ उसी प्रकार संबंधित हैं जिस प्रकार निम्नलिखित समुच्चयों की संख्याएँ संबंधित हैं।
(ध्यान दें: संक्रियाएँ संख्याओं को उनके घटक अंकों में तोड़े बिना, पूर्ण संख्याओं पर की जानी चाहिए। उदाहरण के लिए, 13 – 13 पर संक्रियाएँ जैसे 13 में जोड़ना/घटाना/गुणा करना आदि की जा सकती हैं। 13 को 1 और 3 में तोड़ना और फिर 1 और 3 पर गणितीय संक्रियाएँ करना वर्जित है)
(13, 15, 2)
(11, 23, 12)

(1) (19, 37, 15)
(2) (23, 39, 13)
(3) (48, 61, 10)
(4) (10, 24, 14) ✔

General Awareness

Q.41 What does the Richter scale primarily measure in an earthquake?
भूकंप में रिक्टर पैमाना मुख्य रूप से क्या मापता है?

(1) Surface fault length / सतही भ्रंश की लंबाई
(2) Duration of ground motion / भू-कंपन की अवधि
(3) Visible structural damage / दृश्यमान संरचनात्मक क्षति
(4) Released seismic energy / मुक्त हुई भूकंपीय ऊर्जा ✔

Q.42 The aftermath of 1857 Revolt saw the end of the rule of the _____ administratively.
1857 के विद्रोह के परिणामस्वरूप प्रशासनिक रूप से _____ के शासन का अंत हुआ।

(1) Maratha power / मराठा शक्ति
(2) Sikh dominance / सिख प्रभुत्व
(3) East India Company / ईस्ट इंडिया कंपनी ✔
(4) Mughals / मुगलों

Q.43 Loktak Lake, famous for its unique floating islands of vegetation called "Phumdis", is located in which northeastern state of India?
वनस्पति के अपने अनूठे तैरते द्वीपों, जिन्हें "फुमदी" कहा जाता है, के लिए प्रसिद्ध लोकटक झील भारत के किस पूर्वोत्तर राज्य में स्थित है?

(1) Meghalaya / मेघालय
(2) Assam / असम
(3) Mizoram / मिज़ोरम
(4) Manipur / मणिपुर ✔

Q.44 What does Article 40 of the Indian Constitution, which is the Directive Principle of State Policy, direct the State to do?

भारतीय संविधान का अनुच्छेद 40, जो राज्य की नीति का एक निदेशक तत्व है, राज्य को क्या करने का निर्देश देता है?

(1) to promote cottage industries on an individual or cooperative basis in rural areas / ग्रामीण क्षेत्रों में व्यक्तिगत या सहकारी आधार पर कुटीर उद्योगों को बढ़ावा देना

(2) to organise village panchayats as units of Self- government / ग्राम पंचायतों को स्वशासन की इकाइयों के रूप में संगठित करना ✔

(3) to raise the level of nutrition and the standard of living and to improve public health / पोषण के स्तर और जीवन स्तर को ऊँचा करना तथा लोक स्वास्थ्य में सुधार करना

(4) to secure a uniform civil code for all citizens across India / पूरे भारत में सभी नागरिकों के लिए एक समान नागरिक संहिता सुनिश्चित करना

Q.45 Into how many volumes is the 'Akbar-Nama' divided?

'अकबरनामा' कितने खंडों में विभाजित है?

(1) Four / चार

(2) Six / छह

(3) Three / तीन ✔

(4) Two / दो

Q.46 Who can perform Union functions when entrusted by the President, as per Article 258(1) of the Constitution?

संविधान के अनुच्छेद 258(1) के अनुसार, राष्ट्रपति द्वारा सौंपे जाने पर संघ के कार्यों का निष्पादन कौन कर सकता है?

(1) District courts / जिला न्यायालय

(2) Local bodies / स्थानीय निकाय

(3) Chief Minister of the State / राज्य के मुख्यमंत्री

(4) Governors of States / राज्यों के राज्यपाल ✔

Q.47 Which Schedule of the Constitution was added by the 74th Amendment Act, listing the functional items of Municipalities?

नगरपालिकाओं के कार्यात्मक विषयों को सूचीबद्ध करने वाली संविधान की कौन-सी अनुसूची 74वें संशोधन अधिनियम द्वारा जोड़ी गई थी?

(1) Twelfth Schedule / बारहवीं अनुसूची ✔

(2) Tenth Schedule / दसवीं अनुसूची

(3) Ninth Schedule / नौवीं अनुसूची

(4) Eleventh Schedule / ग्यारहवीं अनुसूची

Q.48 The Battle of Talikota (1565 CE), which marked the beginning of the decline of the Vijayanagara Empire, was fought between:

तालीकोटा का युद्ध (1565 ई.), जिसने विजयनगर साम्राज्य के पतन की शुरुआत को चिह्नित किया, किनके बीच लड़ा गया था?

(1) Vijayanagara Empire and the Bahmani Sultanate / विजयनगर साम्राज्य और बहमनी सल्तनत

(2) Vijayanagara Empire and the Mughal forces / विजयनगर साम्राज्य और मुगल सेना

(3) Vijayanagara Empire and a coalition of Deccan Sultanates / विजयनगर साम्राज्य और दक्कन सल्तनतों का गठबंधन ✔

(4) Vijayanagara Empire and the Portuguese / विजयनगर साम्राज्य और पुर्तगाली

Q.49 Which of the following effects does NOT occur during a Proclamation of Financial Emergency under Article 360?

अनुच्छेद 360 के अंतर्गत वित्तीय आपातकाल की उद्घोषणा के दौरान निम्नलिखित में से कौन-सा प्रभाव नहीं होता है?

(1) Financial powers of the States may be curtailed by the Centre / केंद्र द्वारा राज्यों की वित्तीय शक्तियों में कटौती की जा सकती है

(2) The President may reduce the salaries of Central Government employees / राष्ट्रपति केंद्र सरकार के कर्मचारियों के वेतन में कमी कर सकते हैं

(3) Distribution of revenues between Centre and States is suspended / केंद्र और राज्यों के बीच राजस्व का वितरण निलंबित हो जाता है ✔

(4) State legislatures may be directed to reserve money bills for Presidential consideration / राज्य विधानमंडलों को धन विधेयकों को राष्ट्रपति के विचारार्थ आरक्षित रखने का निर्देश दिया जा सकता है

Q.50 Which of the following rivers is primarily responsible for the formation of the northern part of the Great Indian Plains?

महान भारतीय मैदान के उत्तरी भाग के निर्माण के लिए निम्नलिखित में से कौन-सी नदी मुख्य रूप से उत्तरदायी है?

(1) Ganga / गंगा ✔

(2) Narmada / नर्मदा

(3) Godavari / गोदावरी

(4) Krishna / कृष्णा

Q.51 What major administrative change occurred after the suppression of the Revolt of 1857?

1857 के विद्रोह के दमन के बाद कौन-सा प्रमुख प्रशासनिक परिवर्तन हुआ?

(1) The British Parliament abolished the Indian Penal Code / ब्रिटिश संसद ने भारतीय दंड संहिता को समाप्त कर दिया

(2) The East India Company was strengthened and given direct control / ईस्ट इंडिया कंपनी को सुदृढ़ किया गया और उसे प्रत्यक्ष नियंत्रण दिया गया

(3) Queen Victoria announced direct Crown rule through a proclamation / महारानी विक्टोरिया ने एक उद्घोषणा के माध्यम से प्रत्यक्ष क्राउन शासन की घोषणा की ✔

(4) Lord Dalhousie was appointed as the Viceroy / लॉर्ड डलहौजी को वायसराय नियुक्त किया गया

Q.52 What is the key aim of the UDAN Scheme of the Ministry of Civil Aviation?

नागर विमानन मंत्रालय की उड़ान (UDAN) योजना का प्रमुख उद्देश्य क्या है?

(1) Privatisation of airports under the PPP model / PPP मॉडल के अंतर्गत हवाई अड्डों का निजीकरण

(2) Regional connectivity through affordable air travel / किफायती हवाई यात्रा के माध्यम से क्षेत्रीय संपर्क ✔

(3) Promotion of air travel only in metro cities / केवल महानगरों में हवाई यात्रा को बढ़ावा देना

(4) Expansion of international air cargo facilities / अंतरराष्ट्रीय हवाई कार्गो सुविधाओं का विस्तार

Q.53 The temple at Konark, a monumental representation of God Surya's chariot, has how many wheels decorated with symbolic designs, with the chariot being led by a team of six horses?

कोणार्क का मंदिर, जो भगवान सूर्य के रथ का एक स्मारकीय निरूपण है, में प्रतीकात्मक आकृतियों से सुसज्जित कितने पहिए हैं, जिसमें रथ को छह घोड़ों का एक दल खींच रहा है?

(1) 30

(2) 12

(3) 18

(4) 24 ✔

Q.54 Which of the following characteristics of the Peninsular Plateau best differentiates it from the Himalayan Mountain ranges?

प्रायद्वीपीय पठार की निम्नलिखित में से कौन-सी विशेषता उसे हिमालय पर्वत श्रृंखलाओं से सबसे अच्छी तरह अलग करती है?

(1) Presence of high, conical peaks and steep slopes / ऊँची, शंक्वाकार चोटियों और तीव्र ढलानों की उपस्थिति

(2) Composition of unconsolidated materials like mud and silt / कीचड़ और गाद जैसी असंपिंडित सामग्रियों से बना होना

(3) Formation due to recent tectonic folding and uplift / हाल के विवर्तनिक वलन और उत्थान के कारण निर्माण

(4) **Rounded hilltops made of hard igneous and metamorphic rocks / कठोर आग्नेय और कायांतरित चट्टानों से बनी गोलाकार पहाड़ी चोटियाँ ✔**

Q.55 What is the major type of land use in India?

भारत में भूमि उपयोग का प्रमुख प्रकार क्या है?

(1) Land under permanent pastures / स्थायी चरागाहों के अंतर्गत भूमि

(2) Forest land / वन भूमि

(3) Barren and uncultivable land / बंजर और कृषि अयोग्य भूमि

(4) **Net sown area / निवल बोया गया क्षेत्र ✔**

Q.56 What do we call a specific sequence of notes that is peculiar to each Raga of Indian classical music and by which a listener can easily recognize the Raga?

भारतीय शास्त्रीय संगीत के प्रत्येक राग की विशिष्ट उस स्वर-अनुक्रम को क्या कहते हैं, जिसके द्वारा श्रोता उस राग को आसानी से पहचान सकता है?

(1) **Pakad / पकड़ ✔**

(2) Avaroha / अवरोह

(3) Aroha / आरोह

(4) Thata / थाट

Q.57 What was the ultimate goal of Satyagraha, that took place in India, according to Gandhi?

गांधीजी के अनुसार, भारत में हुए सत्याग्रह का अंतिम लक्ष्य क्या था?

(1) **To convert the enemy through self-suffering and truth / आत्म-पीड़ा और सत्य के माध्यम से शत्रु का हृदय परिवर्तन करना ✔**

(2) To surrender to injustice / अन्याय के आगे समर्पण करना

(3) To defeat the enemy by force / बल द्वारा शत्रु को पराजित करना

(4) To seek political power by any means / किसी भी तरीके से राजनीतिक सत्ता प्राप्त करना

Q.58 Which traditional system of land ownership existed among the Mundas before British interference?

ब्रिटिश हस्तक्षेप से पहले मुंडाओं में भू-स्वामित्व की कौन-सी पारंपरिक प्रणाली विद्यमान थी?

(1) Jagirdari system / जागीरदारी प्रणाली

(2) Zamindari system / ज़मींदारी प्रणाली

(3) **Khuntkatti system / खूंटकट्टी प्रणाली ✔**

(4) Raiyatwari system / रैयतवारी प्रणाली

Q.59 Mudiyettu and Krishnattam are traditional folk theatre forms of which Indian state?

मुडियेट्टु और कृष्णाट्टम किस भारतीय राज्य के पारंपरिक लोक रंगमंच रूप हैं?

(1) Karnataka / कर्नाटक

(2) **Kerala / केरल ✔**

(3) Telangana / तेलंगाना

(4) Andhra Pradesh / आंध्र प्रदेश

Q.60 The Central Vigilance Commission (CVC) is categorised as a _____ body.

केंद्रीय सतर्कता आयोग (CVC) को एक _____ निकाय के रूप में वर्गीकृत किया गया है।

(1) statutory / सांविधिक ✔

(2) quasi-judicial / अर्ध-न्यायिक

(3) constitutional / संवैधानिक

(4) regulatory / नियामक

Q.61 The Pradhan Mantri Gram Sadak Yojana aims to:

प्रधानमंत्री ग्राम सड़क योजना का उद्देश्य है:

(1) provide electricity to urban areas / शहरी क्षेत्रों को बिजली प्रदान करना

(2) promote export-oriented businesses / निर्यात-उन्मुख व्यवसायों को बढ़ावा देना

(3) build expressways across the country / पूरे देश में एक्सप्रेसवे का निर्माण करना

(4) connect rural areas through all-weather roads / बारहमासी सड़कों के माध्यम से ग्रामीण क्षेत्रों को जोड़ना ✔

Q.62 In which city was the 3rd United Nations Ocean Conference (UNOC3), organised by the United Nations, held in June 2025?

संयुक्त राष्ट्र द्वारा आयोजित 3रा संयुक्त राष्ट्र महासागर सम्मेलन (UNOC3) जून 2025 में किस शहर में आयोजित किया गया था?

(1) Tokyo, Japan / टोक्यो, जापान

(2) Geneva, Switzerland / जिनेवा, स्विट्ज़रलैंड

(3) Nice, France / नीस, फ्रांस ✔

(4) Lisbon, Portugal / लिस्बन, पुर्तगाल

Q.63 What is the pH of 0.0001 M HCl solution?

0.0001 M HCl विलयन का pH क्या है?

(1) 1

(2) 4 ✔

(3) 7

(4) 12

Q.64 The UN Climate Conference (COP29) on 24 November 2024 was held in _____.

24 नवंबर 2024 को संयुक्त राष्ट्र जलवायु सम्मेलन (COP29) _____ में आयोजित किया गया था।

(1) Glasgow / ग्लासगो

(2) Sharm el-Sheikh / शर्म अल-शेख

(3) Dubai / दुबई

(4) Baku / बाकू ✔

Q.65 Which mission aims to develop India's indigenous GPU capabilities under the IndiaAI programme, as of May 2025?

मई 2025 तक की स्थिति के अनुसार, IndiaAI कार्यक्रम के अंतर्गत कौन-सा मिशन भारत की स्वदेशी GPU क्षमताओं को विकसित करने का लक्ष्य रखता है?

(1) Tejas / तेजस

(2) Vistar / विस्तार

(3) Shakti / शक्ति

(4) IndiaAI ✔

Q.66 In the financial year 2025–26, what is the amount allocated to the Sports Authority of India (SAI) in India?

वित्तीय वर्ष 2025–26 में, भारत में भारतीय खेल प्राधिकरण (SAI) को आवंटित राशि कितनी है?

(1) ₹850 crore / ₹850 करोड़

(2) **₹830 crore / ₹830 करोड़ ✔**

(3) ₹750 crore / ₹750 करोड़

(4) ₹800 crore / ₹800 करोड़

Q.67 What was India's GDP growth rate in the October to December 2024 quarter?

अक्टूबर से दिसंबर 2024 की तिमाही में भारत की GDP वृद्धि दर क्या थी?

(1) **6.2% ✔**

(2) 6.8%

(3) 5.8%

(4) 6.5%

Q.68 The Second Blue Talks 2025 served as a lead-up to which major international conference?

दूसरी ब्लू टॉक्स 2025 किस प्रमुख अंतरराष्ट्रीय सम्मेलन की पूर्व-तैयारी के रूप में आयोजित की गई थी?

(1) COP29 Summit / COP29 शिखर सम्मेलन

(2) **3rd United Nations Ocean Conference (UNOC3) / 3रा संयुक्त राष्ट्र महासागर सम्मेलन (UNOC3) ✔**

(3) UN Water Conference 2025 / संयुक्त राष्ट्र जल सम्मेलन 2025

(4) Global Biodiversity Summit 2025 / वैश्विक जैव विविधता शिखर सम्मेलन 2025

Q.69 Seasonal unemployment is commonly seen in which sector?

मौसमी बेरोज़गारी सामान्यतः किस क्षेत्र में देखी जाती है?

(1) Manufacturing / विनिर्माण

(2) Information Technology / सूचना प्रौद्योगिकी

(3) **Agriculture / कृषि ✔**

(4) Banking / बैंकिंग

Q.70 Which type of sound wave has a frequency below 20 Hz?

किस प्रकार की ध्वनि तरंग की आवृत्ति 20 Hz से कम होती है?

(1) Ultrasonic wave / पराश्रव्य तरंग

(2) Inaudible wave / अश्रव्य तरंग

(3) Audible wave / श्रव्य तरंग

(4) **Infrasonic wave / अवश्रव्य तरंग ✔**

Q.71 The “Kensington Treaty”, signed on 17 July 2025, is a cooperation treaty between which two countries?

17 जुलाई 2025 को हस्ताक्षरित “केंसिंग्टन संधि” किन दो देशों के बीच एक सहयोग संधि है?

(1) India and Australia / भारत और ऑस्ट्रेलिया

(2) France and Italy / फ्रांस और इटली

(3) **United Kingdom and Germany / यूनाइटेड किंगडम और जर्मनी ✔**

(4) United States and Japan / संयुक्त राज्य अमेरिका और जापान

Q.72 NASA's recent scientific balloon campaign in Antarctica (2025) was aimed at studying which particles entering the Earth's atmosphere?

अंटार्कटिका में NASA का हालिया वैज्ञानिक बैलून अभियान (2025) पृथ्वी के वायुमंडल में प्रवेश करने वाले किन कणों का अध्ययन करने के उद्देश्य से था?

(1) Methane atmospheric plumes / मीथेन वायुमंडलीय प्लूम

(2) Carbon monoxide signatures / कार्बन मोनोऑक्साइड संकेतक

(3) **High-energy particles including anti-matter / प्रतिपदार्थ सहित उच्च-ऊर्जा कण ✔**

(4) Methane atmospheric plumes anti-matter / मीथेन वायुमंडलीय प्लूम प्रतिपदार्थ

Q.73 Which of the following is a Financial Committee of the Indian Parliament?

निम्नलिखित में से कौन-सी भारतीय संसद की एक वित्तीय समिति है?

(1) Railway Convention Committee / रेल अभिसमय समिति

(2) Committee on Ethics / आचार समिति

(3) **Estimates Committee / प्राक्कलन समिति ✔**

(4) Committee on Petitions / याचिका समिति

Q.74 Vizhinjam International Seaport, India's first deep-water transshipment port, is primarily designed for which of the following purposes?

भारत का पहला गहरे पानी का ट्रांसशिपमेंट बंदरगाह, विझिंजम अंतरराष्ट्रीय बंदरगाह, मुख्य रूप से निम्नलिखित में से किस उद्देश्य के लिए डिज़ाइन किया गया है?

(1) **Container and multi-purpose cargo handling / कंटेनर और बहुउद्देशीय कार्गो प्रबंधन ✔**

(2) Passenger cruise services only / केवल यात्री क्रूज़ सेवाएँ

(3) Offshore oil drilling operations / अपतटीय तेल वेधन संचालन

(4) Fishing and marine research activities / मत्स्यन और समुद्री अनुसंधान गतिविधियाँ

Q.75 What engine type has ISRO advanced in developing for the LVM3 vehicle in 2025?

ISRO ने 2025 में LVM3 यान के लिए किस प्रकार के इंजन के विकास में प्रगति की है?

(1) Liquid methane engine / द्रव मीथेन इंजन

(2) Hybrid fuel engine / हाइब्रिड ईंधन इंजन

(3) Plasma propulsion engine / प्लाज़्मा प्रणोदन इंजन

(4) **Semicryogenic engine / सेमी-क्रायोजेनिक इंजन ✔**

Q.76 Which organisation successfully conducted the Release Trials of the Long-Range Glide Bomb 'Gaurav' in April 2025?

अप्रैल 2025 में लंबी दूरी के ग्लाइड बम 'गौरव' के रिलीज़ परीक्षण किस संगठन ने सफलतापूर्वक किए?

(1) Bhabha Atomic Research Centre (BARC) / भाभा परमाणु अनुसंधान केंद्र (BARC)

(2) Indian Space Research Organisation (ISRO) / भारतीय अंतरिक्ष अनुसंधान संगठन (ISRO)

(3) **Defence Research and Development Organisation / रक्षा अनुसंधान एवं विकास संगठन ✔**

(4) Hindustan Aeronautics Limited (HAL) / हिंदुस्तान एयरोनॉटिक्स लिमिटेड (HAL)

Q.77 Which summit was co-chained by French President Emmanuel Macron and Indian Prime Minister Narendra Modi in February 2025?

फरवरी 2025 में फ्रांसीसी राष्ट्रपति इमैनुएल मैक्रों और भारतीय प्रधानमंत्री नरेंद्र मोदी ने किस शिखर सम्मेलन की सह-अध्यक्षता की?

(1) COP30

(2) World Government Summit / विश्व सरकार शिखर सम्मेलन

(3) **AI Action Summit / AI एक्शन शिखर सम्मेलन ✔**

(4) G20 Summit / G20 शिखर सम्मेलन

Q.78 Allium sativum is the botanical name of which plant that is commonly used for conditions related to the heart and blood system?

एलियम सैटाइवम (Allium sativum) किस पौधे का वानस्पतिक नाम है, जिसका उपयोग सामान्यतः हृदय और रक्त प्रणाली से संबंधित स्थितियों के लिए किया जाता है?

(1) Chives / चाइव्स

(2) **Garlic / लहसुन ✔**

(3) Onion / प्याज़

(4) Leek / लीक

Q.79 Which term describes the government's control over prices and production before 1991 in India?

1991 से पहले भारत में कीमतों और उत्पादन पर सरकार के नियंत्रण को किस शब्द से वर्णित किया जाता है?

(1) Free market / मुक्त बाज़ार

(2) Open trade / खुला व्यापार

(3) **License Raj / लाइसेंस राज ✔**

(4) Liberal economy / उदार अर्थव्यवस्था

Q.80 The President of which country was the Chief Guest for India's 76th Republic Day celebrations?

भारत के 76वें गणतंत्र दिवस समारोह में किस देश के राष्ट्रपति मुख्य अतिथि थे?

(1) Albania / अल्बानिया

(2) Nigeria / नाइजीरिया

(3) England / इंग्लैंड

(4) **Indonesia / इंडोनेशिया ✔**

Arithmetical and Numerical Ability

Q.81 A salary is increased by 20% and then decreased by 20%. Find the percentage decreased in the salary.

एक वेतन में 20% की वृद्धि की जाती है और फिर 20% की कमी की जाती है। वेतन में हुई प्रतिशत कमी ज्ञात कीजिए।

(1) 6%

(2) **4% ✔**

(3) 2%

(4) 5%

Q.82 The average of three numbers is 22. If two numbers are 11 and 23, the third number is:
तीन संख्याओं का औसत 22 है। यदि दो संख्याएँ 11 और 23 हैं, तो तीसरी संख्या है:

(1) 31
(2) 34
(3) 32 ✔
(4) 33

Q.83 The number 898295 is divisible by which of the following?
संख्या 898295 निम्नलिखित में से किससे विभाज्य है?

(1) 5 ✔
(2) 8
(3) 3
(4) 9

Q.84 A dishonest vendor claims that he is selling goods at their cost price. But he is weighing 628 grams for 1000 grams. What is his profit percentage (rounded off to 2 decimal places)?
एक बेईमान विक्रेता दावा करता है कि वह सामान क्रय मूल्य पर बेच रहा है। परंतु वह 1000 ग्राम के स्थान पर 628 ग्राम तौलता है। उसका लाभ प्रतिशत (दशमलव के 2 स्थानों तक पूर्णांकित) क्या है?

(1) 56.39%
(2) 61.92%
(3) 59.05%
(4) 59.24% ✔

Q.85 If the HCF of 144 and 180 is expressed in the form of 13m − 3, then the value of m is:
यदि 144 और 180 के HCF को 13m − 3 के रूप में व्यक्त किया जाए, तो m का मान है:

(1) 5
(2) 1
(3) 3 ✔
(4) 7

Q.86 Simplify: $\sqrt[6]{64} + \sqrt[4]{2401} + \sqrt[3]{17576} + \sqrt{1600}$
सरल कीजिए: $\sqrt[6]{64} + \sqrt[4]{2401} + \sqrt[3]{17576} + \sqrt{1600}$

(1) 65
(2) 70
(3) 80
(4) 75 ✔

Q.87 The value of $4^2 + \sqrt{(7^2)} - 1\sqrt{81} - 12 =$
$4^2 + \sqrt{(7^2)} - 1\sqrt{81} - 12$ का मान है:

(1) 2 ✔
(2) 0
(3) 1
(4) 5

Q.88 Three bells ring at intervals of 4 minutes, 5 minutes, and 6 minutes, respectively. They ring together at 12 noon. When will they ring together next?

तीन घंटियाँ क्रमशः 4 मिनट, 5 मिनट और 6 मिनट के अंतराल पर बजती हैं। वे दोपहर 12 बजे एक साथ बजती हैं। वे अगली बार एक साथ कब बजेंगी?

(1) 1:30 PM

(2) 1:00 PM ✔

(3) 2:00 PM

(4) 2:30 PM

Q.89 Yuvraj deposited a certain sum of money at 20% rate of interest per annum, compounded annually. At the end of 2 years, Yuvraj received a total amount of ₹97308. What was the sum of money deposited by Yuvraj?

युवराज ने एक निश्चित धनराशि 20% वार्षिक ब्याज दर पर जमा की, जिस पर ब्याज वार्षिक रूप से संयोजित होता है। 2 वर्ष के अंत में, युवराज को कुल ₹97308 की राशि प्राप्त हुई। युवराज द्वारा जमा की गई धनराशि कितनी थी?

(1) ₹67575 ✔

(2) ₹67521

(3) ₹67471

(4) ₹68007

Q.90 A certain sum amounts to ₹88,622 at the rate of 63% per annum in 2 years, interest compounded 8-monthly. What will be the amount payable (in ₹, rounded off to the nearest number) on the same sum at the same rate and in the same time, if the interest is compounded yearly?

एक निश्चित धनराशि 63% वार्षिक दर से 2 वर्षों में ₹88,622 हो जाती है, जिस पर ब्याज 8-मासिक रूप से संयोजित होता है। यदि ब्याज वार्षिक रूप से संयोजित हो, तो उसी धनराशि पर उसी दर से और उसी समय में देय राशि (₹ में, निकटतम संख्या तक पूर्णांकित) कितनी होगी?

(1) 81,780

(2) 81,478

(3) 82,234 ✔

(4) 81,644

Q.91 In an election between two candidates, the winning candidate secured 54% of the valid votes and won by 2,944 votes. If 8% of the total votes were declared invalid, find the total number of votes cast in the election.

दो उम्मीदवारों के बीच हुए एक चुनाव में, विजयी उम्मीदवार ने वैध मतों का 54% प्राप्त किया और 2,944 मतों से जीत गया।
यदि कुल मतों का 8% अवैध घोषित किया गया, तो चुनाव में डाले गए कुल मतों की संख्या ज्ञात कीजिए।

(1) 22,415

(2) 40,000 ✔

(3) 38,455

(4) 28,000

Q.92 The following table shows the number of students studying in three disciplines (Science, Arts and Law) in four colleges (A, B, C and D). Study the table and answer the question that follows.
Colleges Disciplines A B C D Science 324 378 512 711 Arts 318 525 432 323 Law 435 612 628 492 What percentage of students in college C are studying in the Arts discipline? (Rounded off to one decimal place.)
निम्नलिखित तालिका चार महाविद्यालयों (A, B, C और D) में तीन विषयों (विज्ञान, कला और विधि) में अध्ययनरत विद्यार्थियों की संख्या दर्शाती है। तालिका का अध्ययन करें और उसके बाद दिए गए प्रश्न का उत्तर दें।
महाविद्यालय विषय A B C D विज्ञान 324 378 512 711 कला 318 525 432 323 विधि 435 612 628 492 महाविद्यालय C के कितने प्रतिशत विद्यार्थी कला विषय में अध्ययनरत हैं? (दशमलव के एक स्थान तक पूर्णांकित।)

(1) 29.1%
(2) 25.9%
(3) 27.5% ✔
(4) 23.2%

Q.93 How long (in years) will it take for ₹1800 to become ₹2700 at a rate of 10% per annum simple interest?
10% वार्षिक साधारण ब्याज की दर पर ₹1800 को ₹2700 होने में कितना समय (वर्षों में) लगेगा?

(1) 4
(2) 6
(3) 5 ✔
(4) 7

Q.94 Simplify 180 ÷ [10 ÷ 5 x {16 + 19 - (10 + 2 - (2 + 5))}]
180 ÷ [10 ÷ 5 x {16 + 19 - (10 + 2 - (2 + 5))}] को सरल कीजिए

(1) 4
(2) -4
(3) 2
(4) 3 ✔

Q.95 The number 834479 is divisible by which of the following?
संख्या 834479 निम्नलिखित में से किससे विभाज्य है?

(1) 7
(2) 3
(3) 13
(4) 17 ✔

Q.96 Three-eighth of four-fifth of a number is 2 less than half of the number. What is the value of 1.75 times the number?
किसी संख्या के चार-बटा-पाँच का तीन-बटा-आठ, उस संख्या के आधे से 2 कम है। उस संख्या के 1.75 गुने का मान क्या है?

(1) 15.5
(2) 17.5 ✔
(3) 18.5
(4) 16.5

QuickSarkari.com | WhatsApp Channel | Telegram: t.me/quick_sarkari

Q.97 A trader lost 10% by selling a shirt for ₹870. He will gain x% by selling it for ₹1,450. The value of x is:

एक व्यापारी को एक शर्ट ₹870 में बेचने पर 10% की हानि हुई। उसे ₹1,450 में बेचने पर उसे x% का लाभ होगा। x का मान है:

(1) 40

(2) 45

(3) 60

(4) **50** ✔

Q.98 A batsman in his 10th innings makes a score of 99 runs, thereby increasing his average by 3 runs. What is his average (in runs) after the 10th innings?

एक बल्लेबाज़ अपनी 10वीं पारी में 99 रन बनाता है, जिससे उसका औसत 3 रन बढ़ जाता है। 10वीं पारी के बाद उसका औसत (रनों में) क्या है?

(1) 99

(2) 75

(3) **72** ✔

(4) 69

Q.99 Study the following graph and answer the question below.

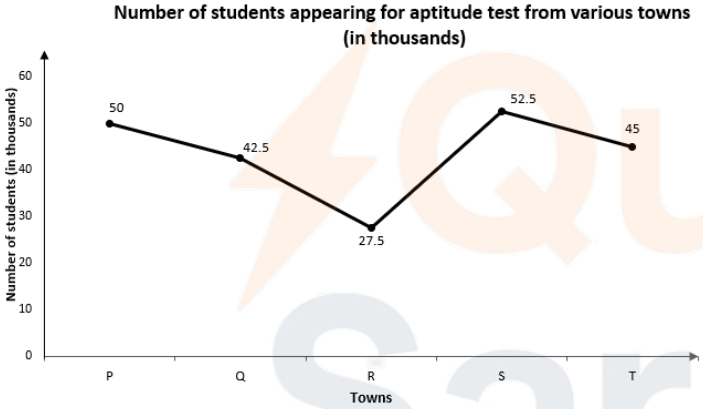

What is the ratio of the number of students appearing for the aptitude test from Town T to that from Town S?

निम्नलिखित ग्राफ का अध्ययन करें और नीचे दिए गए प्रश्न का उत्तर दें।

अभिक्षमता परीक्षा में बैठने वाले विद्यार्थियों की संख्या का, नगर T से नगर S से, अनुपात क्या है?

(1) 7 : 6

(2) **6 : 7** ✔

(3) 6 : 5

(4) 5 : 6

Q.100 Rice worth ₹ 175 per kg and ₹155 per kg are mixed with a third variety in the ratio 1: 1: 2. If the mixture is worth ₹ 183 per kg, the price of the third variety per kg (in ₹) will be:

₹ 175 प्रति kg और ₹155 प्रति kg मूल्य वाले चावल को एक तीसरी किस्म के साथ 1: 1: 2 के अनुपात में मिलाया जाता है। यदि मिश्रण का मूल्य ₹ 183 प्रति kg है, तो तीसरी किस्म का प्रति kg मूल्य (₹ में) होगा:

(1) 186

(2) **201** ✔

(3) 204

(4) 198

Q.101 A pipe can fill a tank in 20 hours. Another pipe can empty the filled tank in 45 hours. If both the pipes are opened simultaneously when the tank is empty, then the time (in hours) in which the tank will be filled is:

एक पाइप एक टंकी को 20 घंटे में भर सकता है। दूसरा पाइप भरी हुई टंकी को 45 घंटे में खाली कर सकता है। यदि टंकी के खाली होने पर दोनों पाइप एक साथ खोल दिए जाएँ, तो टंकी कितने समय (घंटों में) में भर जाएगी?

(1) 33
(2) 40
(3) 30
(4) **36** ✔

Q.102 The sum of three dimensions of a rectangular box is 16 cm, and the total surface area is 192 sq. cm. What is the maximum length (in cm) of the stick that can be placed inside the box?

एक आयताकार बक्से की तीनों विमाओं का योग 16 cm है, और कुल पृष्ठीय क्षेत्रफल 192 वर्ग cm है। बक्से के अंदर रखी जा सकने वाली छड़ी की अधिकतम लंबाई (cm में) कितनी है?

(1) **8** ✔
(2) $4\sqrt{3}$
(3) $5\sqrt{2}$
(4) 4

Q.103 What is the mean proportional between 5/21 and 7/15?

5/21 और 7/15 के बीच मध्यानुपाती क्या है?

(1) **1/3** ✔
(2) 1/5
(3) 5/7
(4) 1/7

Q.104 The circumference of the base of a solid right circular cylinder is 88 cm and its height is 10 cm. What is the volume (in cm^3) of the cylinder? (Take π = 22/7)

एक ठोस लंब वृत्तीय बेलन के आधार की परिधि 88 cm है और इसकी ऊँचाई 10 cm है। बेलन का आयतन (cm^3 में) क्या है? (π = 22/7 लीजिए)

(1) **6160** ✔
(2) 5230
(3) 6059
(4) 6109

Q.105 A smartphone marked at ₹18,500 is offered with a festive discount of 12% on the marked price. Additionally, customers making an online payment get an extra 5% discount on the reduced price. What is the final amount payable by a customer who opts for online payment?

₹18,500 अंकित मूल्य वाले एक स्मार्टफोन पर अंकित मूल्य पर 12% की त्योहारी छूट दी जाती है। इसके अतिरिक्त, ऑनलाइन भुगतान करने वाले ग्राहकों को घटे हुए मूल्य पर 5% की अतिरिक्त छूट मिलती है। ऑनलाइन भुगतान का विकल्प चुनने वाले ग्राहक द्वारा देय अंतिम राशि कितनी है?

(1) ₹15,430
(2) ₹15,500
(3) **₹15,466** ✔
(4) ₹16,280

Q.106 Pipe A can fill a tank in 15 minutes and Pipe B in 30 minutes. They are opened alternately, one at a time for 1 minute each, with A opened first. In how much time would the tank be completely filled?

पाइप A एक टंकी को 15 मिनट में और पाइप B 30 मिनट में भर सकता है। उन्हें बारी-बारी से, एक समय में एक, प्रत्येक को 1 मिनट के लिए खोला जाता है, जिसमें पहले A को खोला जाता है। टंकी कितने समय में पूरी तरह भर जाएगी?

(1) 20 minutes / 20 मिनट ✔

(2) 22 minutes / 22 मिनट

(3) 18 minutes / 18 मिनट

(4) 15 minutes / 15 मिनट

Q.107 In a 375 litre solution of acid and water, the ratio of acid to water is 5 : 10. How many litres of acid must be added to it to get the solution in which the ratio of acid to water will be 4 : 5?

अम्ल और जल के 375 लीटर विलयन में, अम्ल और जल का अनुपात 5 : 10 है। इसमें कितने लीटर अम्ल मिलाया जाना चाहिए ताकि ऐसा विलयन प्राप्त हो जिसमें अम्ल और जल का अनुपात 4 : 5 हो?

(1) 77

(2) 73

(3) 75 ✔

(4) 76

Q.108 On the eve of Diwali a saree is sold for ₹ 720 after allowing 20% discount. What is its marked price?

दिवाली की पूर्व संध्या पर एक साड़ी 20% की छूट देने के बाद ₹ 720 में बेची जाती है। उसका अंकित मूल्य क्या है?

(1) ₹ 950

(2) ₹ 850

(3) ₹ 800

(4) ₹ 900 ✔

Q.109 The surface area of a solid metallic sphere is 1386 cm^2. It is melted and recast into a cone of height 28 cm. Find the diameter (rounded off to two decimal places) of the base of the cone so formed.
(Take π = 22/7)

एक ठोस धात्विक गोले का पृष्ठीय क्षेत्रफल 1386 cm^2 है। इसे पिघलाकर 28 cm ऊँचाई वाले एक शंकु में ढाला जाता है। इस प्रकार बने शंकु के आधार का व्यास (दशमलव के दो स्थानों तक पूर्णांकित) ज्ञात कीजिए।
(π = 22/7 लीजिए)

(1) 25.72 cm ✔

(2) 28.15 cm

(3) 30.37 cm

(4) 23.58 cm

Q.110 Find the curved surface area (in cm^2) of a cone whose base radius is 7 cm and height 24 cm. (use π = 3.14)

एक शंकु का वक्र पृष्ठीय क्षेत्रफल (cm^2 में) ज्ञात कीजिए जिसके आधार की त्रिज्या 7 cm और ऊँचाई 24 cm है। (π = 3.14 का प्रयोग करें)

(1) 450.5

(2) 449.5

(3) 549.5 ✔

(4) 550.5

Q.111 Find the 4th proportional to 4, 18 and 24.

4, 18 और 24 का 4था समानुपाती ज्ञात कीजिए।

(1) 100

(2) 102

(3) 106

(4) 108 ✔

Q.112 A rectangular storage tank is filled to a depth of 1.5 m and holds 4,500 L of liquid. Find the area of the base (in m^2) of the tank (1 m^3 = 1,000 L).

एक आयताकार भंडारण टंकी 1.5 m की गहराई तक भरी है और उसमें 4,500 L द्रव है। टंकी के आधार का क्षेत्रफल (m^2 में) ज्ञात कीजिए (1 m^3 = 1,000 L)।

(1) 6

(2) 4.5

(3) 1.5

(4) 3 ✔

Q.113 The total surface area of a solid cylinder is 231 cm^2. If the curved surface area of the cylinder is 2/3 of the total surface area, find the volume of the cylinder. (Use π = 22/7)

एक ठोस बेलन का कुल पृष्ठीय क्षेत्रफल 231 cm^2 है। यदि बेलन का वक्र पृष्ठीय क्षेत्रफल कुल पृष्ठीय क्षेत्रफल का 2/3 है, तो बेलन का आयतन ज्ञात कीजिए। (π = 22/7 का प्रयोग करें)

(1) 231 cm^3

(2) 308.5 cm^3

(3) 154 cm^3

(4) 269.5 cm^3 ✔

Q.114 A spherical steel ball of diameter 42 cm is melted and recast into smaller spherical balls, each of diameter 6 cm. Calculate the number of smaller balls obtained.

42 cm व्यास वाली स्टील की एक गोलाकार गेंद को पिघलाकर छोटी गोलाकार गेंदों में ढाला जाता है, जिनमें से प्रत्येक का व्यास 6 cm है। प्राप्त छोटी गेंदों की संख्या की गणना कीजिए।

(1) 289

(2) 432

(3) 301

(4) 343 ✔

Q.115 Train A leaves station M at 6:45 AM and reaches station N at 2:45 PM on the same day. Train B leaves station N at 8:45 AM and reaches station M at 3:45 PM on the same day. Find the time when Trains A and B meet.

ट्रेन A स्टेशन M से 6:45 AM पर चलती है और उसी दिन 2:45 PM पर स्टेशन N पहुँचती है। ट्रेन B स्टेशन N से 8:45 AM पर चलती है और उसी दिन 3:45 PM पर स्टेशन M पहुँचती है। वह समय ज्ञात कीजिए जब ट्रेनें A और B मिलती हैं।

(1) 11:03 AM

(2) 12:33 PM

(3) 12:15 PM

(4) 11:33 AM ✔

QuickSarkari.com | WhatsApp Channel | Telegram: t.me/quick_sarkari

Q.116 If ₹3,200 is divided among 380 children such that each girl and each boy get ₹10 and ₹8, respectively, then how many boys are there?

यदि ₹3,200 को 380 बच्चों में इस प्रकार बाँटा जाता है कि प्रत्येक लड़की और प्रत्येक लड़के को क्रमशः ₹10 और ₹8 मिलते हैं, तो कितने लड़के हैं?

(1) 340
(2) 260
(3) 300 ✔
(4) 320

Q.117 A shopkeeper sells an item for ₹806.4 after giving two successive discounts of 30% and 10% on its marked price. Had he not given any discount, he would have earned a profit of 28%. What is the cost price (in ₹) of the item?

एक दुकानदार किसी वस्तु के अंकित मूल्य पर 30% और 10% की दो क्रमिक छूट देने के बाद उसे ₹806.4 में बेचता है। यदि उसने कोई छूट नहीं दी होती, तो उसे 28% का लाभ होता। वस्तु का क्रय मूल्य (₹ में) क्या है?

(1) 1,039
(2) 1,024
(3) 1,042
(4) 1,000 ✔

Q.118 A and B together can complete a piece of work in 18 days. If A alone can complete the same work in 21 days, then in how many days can B alone complete half of the work?

A और B मिलकर एक कार्य को 18 दिनों में पूरा कर सकते हैं। यदि A अकेले उसी कार्य को 21 दिनों में पूरा कर सकता है, तो B अकेले आधे कार्य को कितने दिनों में पूरा कर सकता है?

(1) 126
(2) 252
(3) 63 ✔
(4) 189

Q.119 The area (in cm^2) of an equilateral triangle of side 19 cm is:

19 cm भुजा वाले एक समबाहु त्रिभुज का क्षेत्रफल (cm^2 में) है:

(1) 361√3/2
(2) 361√3/3
(3) 361√3/4 ✔
(4) 361√3/6

Q.120 A boat moves downstream at a speed of 15 km/hr and upstream at 9 km/hr. What is the speed of the current?

एक नाव धारा के अनुकूल 15 km/hr की चाल से और धारा के प्रतिकूल 9 km/hr की चाल से चलती है। धारा की चाल क्या है?

(1) 2 km/hr
(2) 5 km/hr
(3) 4 km/hr
(4) 3 km/hr ✔

English Language and Comprehension

Q.121 Select the most appropriate option to fill in the blank.
The committee concluded the discussion ___ considering all the evidence carefully.

(1) by
(2) with
(3) **after ✔**
(4) at

Q.122 Rearrange the following segments to form a meaningful sentence. Segment B is the anchor and must remain in the same position.
A. preconceived conclusions
B. researchers manipulate primary
C. empirical data to accommodate
D. under no circumstances should

(1) **DBCA ✔**
(2) CBAD
(3) ABCD
(4) ABDC

Q.123 Choose the correct word to substitute the group of words given below.
A person who compiles dictionaries

(1) **Lexicographer ✔**
(2) Etymologist
(3) Calligrapher
(4) Linguist

Q.124 Select the option that can be used as a one-word substitute for the given group of words.
A person who eats human flesh.

(1) **Cannibal ✔**
(2) Gourmet
(3) Herbivore
(4) Omnivore

Q.125 Choose the correct option to complete the sentence.
The theoretical framework, while elegant in its conception, falters somewhat in its application to real-world scenarios, particularly _____ instances where contextual variables exert a significant influence.

(1) beside
(2) **in ✔**
(3) throughout
(4) against

Q.126 Choose the correct option to complete the sentence.
The interviewers carefully _____ his certificates to determine their authenticity.

(1) scrutinized ✔
(2) overlooked
(3) fabricated
(4) neglected

Q.127 Parts of a sentence are given below. While the first and last parts (S1 and S6) are in the correct place, the remaining parts (labelled P, Q, R and S) are jumbled up. Arrange the parts in the correct order to form a meaningful and coherent sentence.
(S1) Every civilisation has (P) moral values, and (Q) that define its (R) a set of myths (S) historical consciousness (S6) collective aspirations.

(1) QPSR
(2) RQSP ✔
(3) SPQR
(4) PQSR

Q.128 Choose the correct one-word substitution for the underlined segment.
The scholar is respected for his profound and wide-ranging knowledge.

(1) precision
(2) diligence
(3) versatility
(4) erudition ✔

Q.129 Rearrange the following segments to form a meaningful sentence.
A. the central argument
B. with considerable analytical precision
C. examined
D. the reviewer

(1) DCAB ✔
(2) CDAB
(3) BDCA
(4) DACB

Q.130 Complete the sentence with the most suitable word.
The treaty was signed at ___ United Nations headquarters in New York.

(1) an
(2) no word needed
(3) the ✔
(4) a

Q.131 Choose the correct one-word substitute for the underlined segment.
The author made a/an brief and indirect reference to earlier research.

(1) allusion ✔
(2) digression
(3) citation
(4) elaboration

Q.132 Complete the following sentence by choosing the correct form of indirect speech from the options given.
He said, "I am feeling unwell today."
He said that _____

(1) he felt unwell yesterday.
(2) he is feeling unwell today.
(3) he will be feeling unwell today.
(4) he was feeling unwell that day. ✔

Q.133 Select the most appropriate option to fill in the blank.
On our 72nd Independence Day, Prime Minister Narendra Modi announced that by 2022 we may expect _____ Tricolor to be unfurled in space.

(1) a
(2) No article required
(3) an
(4) the ✔

Q.134 Convert the following sentence from Passive to Active Voice.
The books were being arranged by the librarian.

(1) The librarian was arranging the books. ✔
(2) The librarian arranged the books.
(3) The librarian has arranged the books.
(4) The librarian arranges the books.

Q.135 Read the sentence in active voice and select the correct passive voice transformation from the options given. The manager approved the leave application.

(1) The leave application approves by the manager.
(2) The leave application was approved by the manager. ✔
(3) The leave application is approved by the manager.
(4) The leave application has approved by the manager.

Q.136 A sentence divided into multiple segments is given below. The first segment is fixed, while the rest have been jumbled up. Rearrange the jumbled segments to form a coherent statement.
Digital literacy / (P) which empowers individuals to access information efficiently, / (Q) and enhances problem-solving skills,/ (R) is essential in today's knowledge-driven economy, / (S) while promoting responsible use of technology

(1) QSPR
(2) PRSQ
(3) RPQS ✔
(4) PQSR

Q.137 The sentence below is in passive voice. Choose the correct active voice conversion from the given options.
The proposal must be approved by the board before implementation.

(1) The board had to approve the proposal before implementation.
(2) The proposal must have approved the board before implementation.
(3) The board should approve the proposal before implementation.
(4) The board must approve the proposal before implementation. ✔

Q.138 Which of the following is the correct active voice form of the given sentence?
The revised manuscript had been submitted by the authors before the deadline.

(1) The authors submitted the revised manuscript before the deadline.
(2) The authors had submitted the revised manuscript before the deadline. ✔
(3) The authors were submitting the revised manuscript before the deadline.
(4) The authors had been submitted the revised manuscript before the deadline.

Q.139 Complete the sentence by selecting the appropriate verb from the options.
The constant criticisms from his colleagues were _____ to undermine his authority in the office.

(1) designed ✔
(2) design
(3) designing
(4) designs

Q.140 By this time next year, the construction of the new library will be in progress.
Which sentence correctly expresses this in the future continuous tense?

(1) The construction of the new library is going to progress by this time next year.
(2) The construction of the new library will be progressing by this time next year. ✔
(3) The construction of the new library will have been completed by this time next year.
(4) The construction of the new library will be in progress by this time next year.

Q.141 Select the option that means the same as the underlined segment.
The manager warned that without careful planning, the project might end up worse than before despite good intentions.

(1) You can lead a horse to water, but you can't make it drink
(2) The road to hell is paved with good intentions ✔
(3) Do not count your chickens before they are fully hatched yet
(4) A chain is only as strong as its weakest link

Q.142 Choose the most appropriate synonym of the highlighted word.
The evidence provided by the witness was deemed corroborative by the presiding magistrate.

(1) Substantiating ✔
(2) Nomadic
(3) Aesthetic
(4) Contradictory

Q.143 In the following question, a statement has been given with highlighted text. You are required to replace the text with correct idiom given in the options.
Last quarter, Martin presented a clean project timeline, but behind the scenes, he'd skipped several testing steps. When the error surfaced, his manager said that this is to deceive the company for unfair advantage.

(1) Worth its weight in gold
(2) To cost an arm and a leg
(3) To pull a fast one on someone ✔
(4) To weather the storm

Q.144 Choose the most appropriate antonym of the highlighted word.
The legal framework was criticized for being too malleable, allowing for various interpretations depending on the judge.

(1) Ambiguous
(2) Tractable
(3) Rigid ✔
(4) Pliable

Q.145 Select the INCORRECTLY spelt word.

(1) Unique
(2) Troupe
(3) Tenent ✔
(4) Veracious

Q.146 Select the most appropriate proverb that can substitute the highlighted segment of the given sentence.
She is confident in her decisions and does not let criticism affect her because someone who knows they are right has no reason to be afraid.

(1) Cut your coat according to your cloth
(2) A clear conscience fears no accusation ✔
(3) You can lead a horse to water, but you can't make it drink
(4) Empty vessels make the most noise

Q.147 Identify the antonym of the highlighted word.
The policy was condemned as anachronistic in a rapidly evolving digital economy.

(1) Experimental
(2) Contemporary ✔
(3) Bureaucratic
(4) Controversial

Q.148 Choose the most appropriate antonym of the word "generous" given in the sentence.
She was generous with her time and resources.

(1) prudent
(2) measured
(3) patient
(4) stingy ✔

Q.149 Select the most appropriate idiom that can substitute the highlighted segment of the given sentence.
After a long and tiring day, he went straight to bed.

(1) Hit the sack ✔
(2) Got cold feet
(3) Kicked the bucket
(4) Read between the lines

Q.150 Select the INCORRECTLY spelt word.

(1) Exsept ✔
(2) Canvas
(3) Accept
(4) Adopt

Q.151 Identify the suitable title for the passage.

(1) Cultural Continuity within Changing Social Environments
(2) Rediscovering Purpose through Creative Participation ✔
(3) Technological Expansion and Declining Traditional Crafts
(4) Occupational Stability and Emotional Disconnection

Q.152 Identify the central theme of the passage.

(1) External success alone may fail to provide lasting fulfillment
(2) Cultural traditions frequently survive through collective adaptation
(3) Community interaction encourages participation in artistic practices ✔
(4) Technological progress often reshapes patterns of social engagement

---

Q.153 Mention the facts given in the passage.

(1) Meera participated in three craft-oriented community activities ✔
(2) Meera participated in six craft-oriented community activities
(3) Meera participated in four craft-oriented community activities
(4) Meera participated in five craft-oriented community activities

---

Q.154 Identify the structure of the passage.

(1) Progressive narration structured through adaptation and participation
(2) Comparative reflection shaped through cultural and professional contrast
(3) Analytical exposition supported by observational interpretation
(4) Sequential transformation developed through encounter and self-realization ✔

Q.155 Identify the tone of the passage.

(1) Meditative and introspective
(2) Observational and contemplative
(3) Reflective and restorative
(4) Thoughtful and evaluative ✔

Q.156 What is the tone of the passage?

(1) Promotional and enthusiastic

(2) Analytical and technical ✔

(3) Emotional and nostalgic

(4) Critical and dismissive

Q.157 What is the central theme of the passage?

(1) The failure of wireless communication systems

(2) The dominance of wired networks over wireless systems

(3) The history of internet browsers

(4) The evolution and significance of Bluetooth technology ✔

Q.158 Which of the following is a fact mentioned in the passage?

(1) Bluetooth uses frequency- hopping spread spectrum. ✔

(2) Bluetooth requires wired physical connectors.

(3) Bluetooth was first developed in the 21st century.

(4) Bluetooth operates in the visible light spectrum.

Q.159 Which real-world development best reflects Bluetooth's evolution?

(1) Expansion of interconnected IoT ecosystems ✔

(2) Growth of isolated mechanical systems

(3) Replacement of smartphones with landlines

(4) Decline of digital communication technologies

Q.160 The word "ubiquitous" in the passage is closest in meaning to:

(1) widespread ✔

(2) complex

(3) rare

(4) temporary

Hindi Language and Comprehension

Q.161 निम्नलिखित वाक्य के रिक्त स्थान को भरने के लिए उपयुक्त परसर्ग का चयन करें।

उदार प्रकृति ने प्रचुर मात्रा में भारत _____खाद्य सामग्री प्रदान की और इस प्रकार यहाँ के निवासी जीवित रहने के संघर्ष से मुक्त रहे।

(1) को ✔

(2) पर

(3) ने

(4) से

Q.162 नदी में बहुत जल बढ़ गया है। वाक्य में ..... विशेषण है।

दिए गए विकल्प में से विशेषण के उचित भेद को चुन कर वाक्य पूर्ण करें -

(1) सार्वनामिक

(2) संख्यावाचक

(3) गुणवाचक

(4) परिमाणवाचक ✔

Q.163 निम्नलिखित अनुच्छेद के वाक्य को उचित क्रम में लिखें जिससे एक सही अनुच्छेद का निर्माण हो-
1. जो अपनी योग्यता
2. सच्चा देश-प्रेमी वही है
3. शक्ति, बुद्धि को राष्ट्र-देवता
4. के चरणों में अर्पित करे

(1) 2, 1, 3, 4 ✔
(2) 4, 2, 3, 1
(3) 1, 2, 4, 3
(4) 3, 4, 1, 2

Q.164 'अपने जीवन का स्वलिखित लेखन' वाक्यांश के लिए सार्थक शब्द है-

(1) आत्मग्लानि
(2) युग-निर्माता
(3) आत्मकथा ✔
(4) भाग्यवादी

Q.165 निम्नलिखित वाक्य को उचित कारक द्वारा पूर्ण करें।
इस नदी __ मछलियाँ बाज़ार ___ बिकती हैं।

(1) की,में ✔
(2) में,पर
(3) ने,का
(4) से,पर

Q.166 निम्नलिखित वाक्य के रेखांकित शब्द का कौन-सा पर्यायवाची नहीं है - 'आप ही यह काम कर सकते हैं ।'

(1) कामना ✔
(2) रोजगार
(3) व्यापार
(4) व्यवसाय

Q.167 'अगर-मगर करना' मुहावरे का क्या अर्थ है?

(1) अति क्रुद्ध होना
(2) व्यर्थ का झंझट
(3) सब उपाय कर डालना
(4) बहाना करना ✔

Q.168 'मास्टरजी बहुत _____ हैं।' वाक्य में रिक्त स्थान की पूर्ति के लिए सही विशेषण पद वाला विकल्प चुनें।

(1) सीधा
(2) स्वच्छ
(3) कड़क ✔
(4) मोटा

Q.169 अभी .....लड़कों को बुलाओ ।
वाक्य के रिक्त स्थान को समुदायवाचक विशेषण से पूर्ण करें ।

(1) चौथे
(2) चौगुने
(3) प्रत्येक
(4) चारों ✔

Quick Sarkari

Q.170 निम्नलिखित अनुच्छेद के वाक्य को उचित क्रम में लिखें जिससे एक सही अनुच्छेद का निर्माण हो-

1. जिसने त्याग किया
2. त्याग हमारे जीवन
3. वही महान कहलाया
4. का मूलमंत्र रहा है

(1) 2, 4, 1, 3 ✔

(2) 1, 2, 3, 4

(3) 1, 4, 2, 3

(4) 2, 3, 4, 1

Q.171 'सार्वभौम' शब्द के लिए कौन-सा वाक्यांश सही है?

(1) जो सुख देता है

(2) जिसका समर्थन किया गया हो

(3) सब भूमि या सब देशों में होने वाला ✔

(4) साहित्य से सम्बन्धित

Q.172 'मुझे तुम्हारी सहायता .....आवश्यकता है।' इस वाक्य को पूर्ण करने के लिए उपयुक्त कारक चिह्न चुनें -

(1) के लिए

(2) से

(3) की ✔

(4) ने

Q.173 'प्राणों पर संकट लाने वाला' वाक्यांश के लिए सार्थक शब्द क्या होगा?

(1) सव्यसाची

(2) सावक

(3) सांघातिक ✔

(4) विभु

Q.174 'सवाक्' के विलोम शब्द से दिये गये वाक्य का रिक्त स्थान पूर्ण करें-- लड़के वालों की अनुचित माँग सुनकर लड़की पक्ष तो ..... रह गया।

(1) भौचक्क

(2) चमत्कृत

(3) अवाक् ✔

(4) निर्वात्

Q.175 निम्नलिखित वाक्य को उपयुक्त प्रेरणार्थक क्रिया से पूरा कीजिए - रिया ने सीता के हाथों पैसे _____

(1) भिजवाए | ✔

(2) भेजे थे |

(3) भेजेगी |

(4) भेजे हैं |

Q.176 रिक्त स्थान के लिए उपयुक्त क्रिया-विशेषण का चयन दिए गए विकल्पों में से करें।

आप सभी को.....मिलने का अवसर दिया जाएगा।

(1) बारी-बारी से ✔

(2) थोड़ा

(3) कितना

(4) लगभग

Q.177 उचित क्रिया-विशेषण शब्द से वाक्य पूर्ण कीजिए।
वह _____ निकल ही गया।

(1) मात्र
(2) अपेक्षा
(3) कुछ
(4) **बस ✔**

Q.178 सही क्रिया का चयन कर वाक्य पूरा करेंहम कल विद्यालय _____।

(1) **जाएँगे ✔**
(2) जाता
(3) जा चुके था
(4) जाना था

Q.179 निम्नलिखित वाक्य में क्रिया-विशेषण का प्रयोग कर वाक्य पूर्ण करें- विपिन बोलता है

(1) मुझे
(2) पढ़ती
(3) **धीरे-धीरे ✔**
(4) नीचे

Q.180 'अपने चाचा _____ कह देना कि मैं कल फिर आऊँगा।' वाक्य के रिक्त स्थान के लिए उपयुक्त कारक चिह्न है-

(1) को
(2) के लिए
(3) **से ✔**
(4) ने

Q.181 "चोर की दाढ़ी में तिनका" लोकोक्ति का सही अर्थ है –

(1) अनहोनी से बचना
(2) असंभव काम करना
(3) नाम के अनुसार गुण
(4) **दोषी को पहचानना आसान ✔**

Q.182 निम्नलिखित वाक्य में चिह्नित शब्द का विलोम शब्द पहचानें।
आज वह बहुत स्थिर है।

(1) **चपल ✔**
(2) विघ्न
(3) धीर
(4) मन्तव्य

Q.183 नीचे दी गई लोकोक्ति का अर्थ बताइएअटका बनिया देय उधार।

(1) जो किसी को उपहार देता है
(2) जो उधार जल्दी चुकाता है
(3) जो अच्छा व्यापार करता है
(4) **दबा हुआ आदमी सब कुछ करता है। ✔**

Quick Sarkari

Q.184 नीचे दिये गये वाक्य के किस भाग में वर्तनी की अशुद्धि है?
जो व्यक्ति शास्त्रों से अभिज्ञ होकर भी व्यवहार में योग्य ज्ञान का अनुप्रयोग नहीं कर पाता है उसकी शिक्षा केवल अडंबर बनकर रह जाती है।

(1) नहीं कर पाता है उसकी शिक्षा
(2) **केवल अडंबर बनकर रह जाती है ✔**
(3) व्यवहार में योग्य ज्ञान का अनुप्रयोग
(4) जो व्यक्ति शास्त्रों से अभिज्ञ होकर भी

Q.185 'जुम्मा -जुम्मा आठ दिन दुनियाँ में आये होना' मुहावरे का सही अर्थ होगा -

(1) बहुत बड़ी विपत्ति आना
(2) विरक्ति होना
(3) **अनुभव रहित होना ✔**
(4) किसी का क्रोध किसी और पर उतारना

Q.186 'रीता हाथ मुँह तक नहीं जाता' लोकोक्ति का सही अर्थ होगा -

(1) **खाली हाथ काम नहीं चलता ✔**
(2) मूल रहेगा तो ब्याज भी मिलेगा
(3) सिर काटकर बालों की रक्षा असंभव है
(4) बैठे-बैठे मुसीबत मोल लेना

Q.187 नीचे दी गई लोकोक्ति का अर्थ बताइएताक पर बैठा उल्लू मांगे भर भर चुल्लू

(1) सावधान रहना
(2) **कोई अयोग्य व्यक्ति ऊंचे स्थान पर बैठकर हुक्म बजाए। ✔**
(3) समय की कद्र करना
(4) मेहनत करना

Q.188 'बात सुनकर भी उस पर ध्यान न देना' के लिए कौन-सा मुहावरा उपयुक्त है?

(1) सुख लूटना
(2) **सुनी–अनसुनी करना ✔**
(3) सुर अलापना
(4) सुर्ख़ाब के पर लगना

Q.189 निम्नलिखित वाक्य में रेखांकित शब्द का विलोम होगा- वर्षा के समय प्रकाश हो जाता है।

(1) अनियत
(2) अनम्य
(3) अजेय
(4) **तिमिर ✔**

Q.190 'गले मढ़ना' मुहावरे का क्या अर्थ है?

(1) संकट का साथी
(2) मालदार
(3) **ज़बरदस्ती सौंपना ✔**
(4) बेहद प्यारा होना

Q.191 उपयुक्त गद्यांश का उपयुक्त शीर्षक है-

(1) अंधविश्वास

(2) नागरिक समानता

(3) धर्मनिरपेक्षता और भारत ✔

(4) इस्लाम का अनुयायी

Q.192 धारण की शक्ति का तात्पर्य क्या होगा?

(1) सत्यभाषिता तथा क्रोधहीनता

(2) अनेकतावादी

(3) जातिगत भेदभाव

(4) रक्षा अथवा कर्तव्य पालन ✔

Q.193 भारत जब धर्मनिरपेक्षता की बातें करता है, तब वह-

(1) वैष्णवों एवं शैवों में परस्पर संघर्ष होता था

(2) अवगुण एवं अधर्म की शरण जाना है

(3) अविरोधी एवं एकतामूलक होता है

(4) धर्म के उक्त दस गुणों से रहित होने की बात नहीं करता ✔

Q.194 धर्मनिरपेक्षता का मूलभाव क्या है?

(1) समन्वयवादिता तथा सहनशीलता ✔

(2) अनेकतावादी

(3) जातिगत भेदभाव का समर्थन

(4) पारस्परिक प्रतिद्वंद्विता

Q.195 धर्म का बाह्य रूप किस पर आधारित है?

(1) अंधविश्वास ✔

(2) अधर्म

(3) प्रचार

(4) धर्मयुद्ध

Q.196 निम्नलिखित में से कौन-सा कथन गद्यांश की केंद्रीय भावना को सर्वाधिक अभिव्यक्त करता है?

(1) विज्ञान ही मानव विकास का एकमात्र आधार है।

(2) प्रकृति मनुष्य के लिए संसाधनों का भंडार है।

(3) मनुष्य महान, चेतन और उत्तरदायी प्राणी है। ✔

(4) तकनीकी विकास मनुष्य की उन्नति का सर्वोच्च उदाहरण है।

Q.197 गद्यांश में मनुष्य को 'सृष्टि का सिरमौर' कहने का मुख्य आधार क्या है?

(1) मनुष्य में सृजन, विवेक और संवेदना का समन्वय ✔

(2) मनुष्य का प्रकृति पर आधिपत्य

(3) मनुष्य की भौतिक उपलब्धियाँ

(4) मनुष्य की जैविक संरचना

Q.198 मनुष्य की महानता का मूल आधार गद्यांश में किसे माना गया है?

(1) बुद्धि और नैतिक चेतना ✔

(2) भौतिक संसाधनों का संग्रह

(3) शारीरिक शक्ति और परिश्रम

(4) सामाजिक प्रतिष्ठा और सत्ता

Q.199 'कल्याण' का पर्यायवाची शब्द क्या होगा?

(1) अनुकंपा

(2) अमर्ष

(3) **क्षेम ✔**

(4) कौशल

Q.200 'मनुष्य' का अनेकार्थी शब्द क्या होगा ?

(1) महीधर

(2) **मर्त्य ✔**

(3) सारंग

(4) मंडल

Answer Key / उत्तर कुंजी

1 4	2 2	3 3	4 2	5 3	6 4	7 4	8 1	9 4	10 3	11 3	12 4	13 2	14 2	15 4
16 2	17 4	18 2	19 3	20 2	21 3	22 2	23 1	24 1	25 3	26 2	27 3	28 1	29 3	30 1
31 4	32 2	33 3	34 4	35 1	36 2	37 4	38 4	39 2	40 4	41 4	42 3	43 4	44 2	45 3
46 4	47 1	48 3	49 3	50 1	51 3	52 2	53 4	54 4	55 4	56 1	57 1	58 3	59 2	60 1
61 4	62 3	63 2	64 4	65 4	66 2	67 1	68 2	69 3	70 4	71 3	72 3	73 3	74 1	75 4
76 3	77 3	78 2	79 3	80 4	81 2	82 3	83 1	84 4	85 3	86 4	87 1	88 2	89 1	90 3
91 2	92 3	93 3	94 4	95 4	96 2	97 4	98 3	99 2	100 2	101 4	102 1	103 1	104 1	105 3
106 1	107 3	108 4	109 1	110 3	111 4	112 4	113 4	114 4	115 4	116 3	117 4	118 3	119 3	120 4
121 3	122 1	123 1	124 1	125 2	126 1	127 2	128 4	129 1	130 3	131 1	132 4	133 4	134 1	135 2
136 3	137 4	138 2	139 1	140 2	141 2	142 1	143 3	144 3	145 3	146 2	147 2	148 4	149 1	150 1
151 2	152 3	153 1	154 4	155 4	156 2	157 4	158 1	159 1	160 1	161 1	162 4	163 1	164 3	165 1
166 1	167 4	168 3	169 4	170 1	171 3	172 3	173 3	174 3	175 1	176 1	177 4	178 1	179 3	180 3
181 4	182 1	183 4	184 2	185 3	186 1	187 2	188 2	189 4	190 3	191 3	192 4	193 4	194 1	195 1
196 3	197 1	198 1	199 3	200 2										

Quick Sarkari

Thank you for studying with QuickSarkari!

Get the latest Sarkari Naukri notifications, admit cards, results, answer keys and free previous-year papers first - follow us on WhatsApp and Telegram.

Visit www.quicksarkari.com

Join our WhatsApp Channel

https://whatsapp.com/channel/0029VaxxbrREquiPoXTWM229

Join our Telegram Channel

https://t.me/quick_sarkari

Share this PDF with your friends preparing for DSSSB exams.