DSSSB PREVIOUS YEAR PAPER WITH ANSWER KEY

DSSSB Assistant Section Officer

22 August 2025 · Shift 3

डीएसएसएसबी सहायक अनुभाग अधिकारी – 22 अगस्त 2025, शिफ्ट 3 का प्रश्न पत्र, उत्तर कुंजी सहित

200	120 min	1 / −0.25	EN + HI
Questions / प्रश्न	Duration / समय	Marks per Q / अंक	Language / भाषा

Sections: General intelligence and Reasoning Ability, General Awareness, Arithmetical and Numerical Ability, English Language and Comprehension, Hindi Language and Comprehension

INSIDE THIS PDF / इस PDF में

Question Paper in English + Hindi with Answer Key (correct option marked in green) + answer table — Page 2–54
प्रश्न पत्र अंग्रेज़ी + हिंदी में, उत्तर कुंजी सहित (सही विकल्प हरे रंग में) + उत्तर तालिका

Official DSSSB Response Sheet with Answer Key (correct option ticked in green) — Page 55–122
आधिकारिक DSSSB रिस्पॉन्स शीट, उत्तर कुंजी सहित (सही विकल्प हरे टिक से)

HOW TO USE THIS PAPER / इस पेपर का उपयोग कैसे करें

1. Attempt the paper first as a timed online mock test (link below).
   पहले नीचे दिए लिंक से इसे टाइमर के साथ ऑनलाइन मॉक टेस्ट के रूप में हल करें।
2. Check your score, section-wise analysis and solutions online.
   ऑनलाइन अपना स्कोर, खंड-वार विश्लेषण और हल देखें।
3. Use this PDF for revision. Correct answers are shown in green.
   दोहराने के लिए इस PDF का उपयोग करें। सही उत्तर हरे रंग में दिए गए हैं।

Attempt this paper as a FREE online mock test

इस पेपर को फ्री ऑनलाइन मॉक टेस्ट के रूप में हल करें – टाइमर, स्कोर और हल के साथ

https://quicksarkari.com/dsssb-assistant-section-officer-22-august-2025-shift-3-mock-test/

All DSSSB Assistant Section Officer papers and mock tests: **quicksarkari.com/dsssb-mock-test/#assistant-section-officer**

Join WhatsApp Channel | Join Telegram Channel

DSSSB Assistant Section Officer – Question Paper (English + Hindi)

DSSSB सहायक अनुभाग अधिकारी – प्रश्न पत्र (अंग्रेज़ी + हिंदी)

Exam held on 22 August 2025, Shift 3 · 200 questions · correct answers marked ✔ in green
परीक्षा तिथि 22 अगस्त 2025, शिफ्ट 3 · 200 प्रश्न · सही उत्तर हरे रंग में ✔ से चिह्नित

> The official paper for this shift was in Hindi. The English version of each question is a translation prepared by QuickSarkari; the language-section questions are shown as asked.
> इस शिफ्ट का आधिकारिक प्रश्न पत्र हिंदी में था। प्रत्येक प्रश्न का अंग्रेज़ी संस्करण QuickSarkari द्वारा तैयार किया गया अनुवाद है; भाषा खंड के प्रश्न मूल रूप में दिए गए हैं।

General intelligence and Reasoning Ability

Q.1 In a row of 18 persons facing north, Sam is 5th from the right end. If Ron is sitting 8th to the left of Sam, then what is Ron's position from the left end of the row?
उत्तर की ओर अभिमुख 18 व्यक्तियों की एक पंक्ति में, सैम दायें छोर से पाँचवें स्थान पर है। यदि रॉन, सैम के बायें से आठवें स्थान पर बैठा है, तो पंक्ति के बायें छोर से रॉन का स्थान क्या है?

(1) 7th / 7वां
(2) 8th / 8वां
(3) 6th / 6वां ✔
(4) 5th / 5वां

Q.2 In a certain code language, 'SAIL' is coded as '6542' and 'LAST' is coded as '5623'. What is the code for 'T' in the given code language?
एक निश्चित कूट भाषा में, 'SAIL' को '6542' के रूप में और 'LAST' को '5623' के रूप में कूटबद्ध किया जाता है। दी गई कूट भाषा में 'T' के लिए कूट क्या है?

(1) 3 ✔
(2) 6
(3) 2
(4) 5

QuickSarkari.com | WhatsApp Channel | Telegram: t.me/quick_sarkari

Q.3 Read the given statements and conclusions carefully. Assuming that the information given in the statements is true, even if it appears to be at variance with commonly known facts, decide which of the given conclusions logically follow(s) from the statements.
Statements:
Some tables are chairs. No chair is a wardrobe. All wardrobes are almirahs.
Conclusions:
(I) Some wardrobes are chairs.
(II) Some chairs are almirahs.

दिए गए कथनों और निष्कर्षों को ध्यानपूर्वक पढ़िए। यह मानते हुए कि कथनों में दी गई जानकारी सत्य है, भले ही वह सामान्यतः ज्ञात तथ्यों से भिन्न प्रतीत होती हो, निर्णय लीजिए कि दिए गए निष्कर्षों में से कौन-से निष्कर्ष, कथनों का तार्किक रूप से अनुसरण करते हैं।
कथन:
कुछ टेबल, चेयर हैं। कोई चेयर, वार्डरॉब नहीं है। सभी वार्डरॉब, अलमीरह हैं।
निष्कर्ष:
(I) कुछ वार्डरॉब, चेयर हैं।
(II) कुछ चेयर, अलमीरह हैं।

(1) Only conclusion (II) follows / केवल निष्कर्ष (II) अनुसरण करता है
(2) Only conclusion (I) follows / केवल निष्कर्ष (I) अनुसरण करता है
(3) Neither conclusion (I) nor (II) follows / न तो निष्कर्ष (I) और न ही (II) अनुसरण करता है ✔
(4) Both conclusions (I) and (II) follow. / निष्कर्ष (I) और (II) दोनों अनुसरण करते हैं।

Q.4 This question is based on the following words.
MAN ARE SHE YOU How many letters are there in the English alphabetical order between the second letter of the first word from the right and the second letter of the first word from the left?

यह प्रश्न निम्नलिखित शब्दों पर आधारित है।
MAN ARE SHE YOU दाईं ओर से पहले शब्द के दूसरे अक्षर और बाईं ओर से पहले शब्द के दूसरे अक्षर के बीच, अंग्रेजी वर्णमाला क्रम में कितने अक्षर हैं?

(1) 11
(2) 13 ✔
(3) 14
(4) 12

Q.5 In a certain code language, 'MINE' is coded as '2973' and 'ITEM' is coded as '3782'. What will be the code for 'T' in the given code language?

किसी निश्चित कूट भाषा में, 'MINE' को '2973' के रूप में कूटबद्ध किया जाता है और 'ITEM' को '3782' के रूप में कूटबद्ध किया जाता है। दी गई कूट भाषा में 'T' का कूट क्या होगा?

(1) 2
(2) 8 ✔
(3) 3
(4) 7

Q.6 This question is based on the five three-digit numbers given below.
(Left) 846 513 736 128 431 (Right)
(Example- 697 – First digit = 6, second digit = 9 and third digit = 7)
Note - All operations are to be performed from left to right.
If the third digit of the largest number is added to the second digit of the smallest number, what will be the resultant?

यह प्रश्न नीचे दी गई तीन-अंकों वाली पाँच संख्याओं पर आधारित है।
(बाएँ) 846 513 736 128 431 (दाएँ)
(उदाहरण- 697 – पहला अंक = 6, दूसरा अंक = 9 और तीसरा अंक = 7)
नोट - सभी संक्रियाएँ बाएँ से दाएँ की जानी चाहिए।
यदि सबसे बड़ी संख्या के तीसरे अंक को सबसे छोटी संख्या के दूसरे अंक में जोड़ा जाए, तो क्या परिणाम प्राप्त होगा?

(1) 6
(2) **8 ✔**
(3) 10
(4) 9

Q.7 Each of P, Q, R, S, T, U and V has an exam on a different day of the same week, starting from Monday and ending on Sunday.
Only two people have their exam after R. Only one person has an exam before T. V has an exam immediately before U, but not on Saturday. P has an exam immediately after Q.
How many people have their exam before V?

P, Q, R, S, T, U और V में से प्रत्येक की परीक्षा सोमवार से शुरू होकर रविवार को समाप्त होने वाले एक ही सप्ताह के अलग-अलग दिन है।
R के बाद केवल दो लोगों की परीक्षा है। T से पहले केवल एक व्यक्तिकी परीक्षा है। V की परीक्षा U से ठीक पहले है, लेकिन शनिवार को नहीं है। P की परीक्षा Q के ठीक बाद है।
V से पहले कितने लोगों की परीक्षा है?

(1) One / एक
(2) Three / तीन
(3) **Two / दो ✔**
(4) Four / चार

Q.8 Refer to the following letter, number, symbol series and answer the question given below. All numbers are single-digit numbers only.
(Left) T @ 5 8 S # % B Q M * @ 9 1 Z # R B X $ 1 (Right)
If all the symbols are deleted from the series, which of the following will be 6th from the right?

निम्नलिखित अक्षर, संख्या, प्रतीक श्रृंखला का संदर्भ लीजिए और नीचे दिए गए प्रश्न का उत्तर दीजिए। सभी संख्याएँ एकल-अंकीय संख्याएँ हैं।
(बाएँ) T @ 5 8 S # % B Q M * @ 9 1 Z # R B X $ 1 (दाएँ)
यदि सभी प्रतीकों को श्रृंखला से हटा दिया जाए, तो निम्नलिखित में से कौन-सा, दाएँ से छठा होगा?

(1) R
(2) **1 ✔**
(3) 9
(4) Z

Q.9 B, C, D, E, G, K and T are sitting around a circular table, facing the centre. Only G sits between T and K. K sits third to the left of B. E sits to the immediate left of B. C is not an immediate neighbour of K. Who sits second to the right of D?

B, C, D, E, G, K और T, एक गोल मेज के परितः उसके केंद्र की ओर अभिमुख होकर बैठे हैं। T और K के बीच केवल G बैठा है। K, B के बाएँ तीसरे स्थान पर बैठा है। E, B के ठीक बाएँ पड़ोस में बैठा है। C, K का निकटतम पड़ोसी नहीं है। D के दाएँ दूसरे स्थान पर कौन बैठा है?

(1) B ✔

(2) K

(3) E

(4) G

Q.10 In a certain code language, 'A + B' means 'A is the mother of B', 'A – B' means 'A is the brother of B', 'A × B' means 'A is the wife of B' and 'A ÷ B' means 'A is the father of B'.
Based on the above, if 'P ÷ Q + R – S × T', then how is Q related to T?

एक निश्चित कूट भाषा में, 'A + B' का अर्थ है कि 'A, B की माता है', 'A – B' का अर्थ है कि 'A, B का भाई है', 'A × B' का अर्थ है कि 'A, B की पत्नी है' और 'A ÷ B' का अर्थ है कि 'A, B का पिता है'।
उपरोक्त जानकारी के आधार पर, यदि 'P ÷ Q + R – S × T' है, तो Q का T से क्या संबंध है?

(1) Mother's mother / माता की माता

(2) Sister's daughter / बहन की पुत्री

(3) Wife's mother / पत्नी की माता ✔

(4) Mother / माता

Q.11 Read the given statement and conclusions carefully. Assuming that the information given in the statement is true, even if it appears to be at variance with commonly known facts, decide which of the given conclusions is/are true based on the given statement.
Statement: T < S ≤ P = Q > U >R
Conclusions:
I. S < U
II. P > R

दिए गए कथन और निष्कर्षों को ध्यानपूर्वक पढ़िए। यह मानते हुए कि कथन में दी गई जानकारी सत्य है, भले ही वह सामान्यतः ज्ञात तथ्यों से भिन्न प्रतीत होती हो, तय कीजिए कि दिए गए निष्कर्षों में से कौन-से
निष्कर्ष, दिए गए कथन के आधार पर सत्य हैं।
कथन: T < S ≤ P = Q > U >R
निष्कर्ष:
I. S < U
II. P > R

(1) Both I and II are true / I और II दोनों सत्य हैं

(2) Neither I nor II is true / न तो I और न ही II सत्य है

(3) Only I is true / केवल I सत्य है

(4) Only II is true / केवल II सत्य है ✔

Q.12 Seven boxes, P, Q, R, S, T, U and V, are kept one above the other, but not necessarily in the same order. S is kept at the top. Only two boxes are kept between S and T. Only two boxes are kept between T and R. V is kept immediately below S.
Only two boxes are kept between V and Q. U is kept at one of the positions below P. Which box is kept immediately above U?

सात डिब्बे, P, Q, R, S, T, U और V, एक के ऊपर एक रखे गए हैं, लेकिन जरूरी नहीं कि इसी क्रम में रखे गए हों। S को सबसे ऊपर रखा गया है। S और T के बीच केवल दो डिब्बे रखे गए हैं। T और R के बीच केवल दो डिब्बे रखे गए हैं। V, S के ठीक नीचे रखा गया है।
V और Q के बीच केवल दो डिब्बे रखे गए हैं। U को P के नीचे किसी एक स्थान पर रखा गया है। U के ठीक ऊपर कौन-सा डिब्बा रखा गया है?

(1) U
(2) **Q ✔**
(3) T
(4) V

Q.13 Read the given statements and conclusions carefully. Assuming that the information given in the statements is true, even if it appears to be at variance with commonly known facts, decide which of the given conclusions logically follow(s) from the statements.
Statements: All beans are potatoes. No cucumber is a tomato. All potatoes are cucumbers.
Conclusion (I): All cucumbers are potatoes.
Conclusion (II): Some beans may be tomatoes.

दिए गए कथनों और निष्कर्षों को ध्यानपूर्वक पढ़ें। यह मानते हुए कि कथनों में दी गई जानकारी सत्य है, भले ही वह सामान्यतः ज्ञात तथ्यों से भिन्न प्रतीत होती हो, निर्णय लीजिए कि दिए गए निष्कर्षों में से कौन- से निष्कर्ष, कथनों का तार्किक रूप से अनुसरण करते हैं।
कथन: सभी सेम, आलू हैं। कोई भी खीरा, टमाटर नहीं है। सभी आलू, खीरा हैं।
निष्कर्ष (I): सभी खीरा, आलू हैं।
निष्कर्ष (II): कुछ सेम, टमाटर हो सकते हैं।

(1) Only conclusion (II) follows / केवल निष्कर्ष (II) अनुसरण करता है
(2) Only conclusion (I) follows / केवल निष्कर्ष (I) अनुसरण करता है
(3) **Neither conclusion (I) nor conclusion (II) follows / न तो निष्कर्ष (I) और न ही निष्कर्ष (II) अनुसरण करता है ✔**
(4) Both conclusions (I) and (II) follow / निष्कर्ष (I) और (II) दोनों अनुसरण करते हैं

Q.14 In a certain code language, 'A + B' means 'A is the son of B', 'A – B' means 'A is the wife of B', 'A × B' means 'A is the brother of B', 'A ÷ B' means 'A is the mother of B'.
If A × B + C ÷ D – E, then how is D related to A?

एक निश्चित कूट भाषा में, 'A + B' का अर्थ है कि 'A, B का पुत्र है', 'A – B' का अर्थ है कि 'A, B की पत्नी है', 'A × B' का अर्थ है कि 'A, B का भाई है', 'A ÷ B' का अर्थ है कि 'A, B की माता है'।
यदि A × B + C ÷ D – E है, तो D का A से क्या संबंध है?

(1) **Sister / बहन ✔**
(2) Mother / माता
(3) Husband's sister / पति की बहन
(4) Brother / भाई

Q.15 Read the given statement and conclusions carefully. Decide which of the given conclusions is/are true based on the statement.
Statement: B ≥ U = N ≥ K = E < D
Conclusions:
I. B ≥ E
II. N ≥ D

दिए गए कथन और निष्कर्षों को ध्यानपूर्वक पढ़ें। निर्णय लीजिए कि दिए गए निष्कर्षों में से कौन-से निष्कर्ष, कथन के आधार पर सत्य हैं।
कथन: B ≥ U = N ≥ K = E < D
निष्कर्ष:
I. B ≥ E
II. N ≥ D

(1) Both conclusions I and II are true / निष्कर्ष I और II दोनों सत्य हैं
(2) Only conclusion I is true / केवल निष्कर्ष I सत्य है ✔
(3) Only conclusion II is true / केवल निष्कर्ष II सत्य है
(4) Neither conclusion I nor II is true / न तो निष्कर्ष I और न ही II सत्य है

Q.16 In a certain code language, 'GEAR' is coded as '36%$' and 'TEAR' is coded as '6!3%'.
How will 'T' be written in that language?

एक निश्चित कूट भाषा में, 'GEAR' को '36%$' के रूप में कूटबद्ध किया जाता है तथा 'TEAR' को '6!3%' के रूप में कूटबद्ध किया जाता है।
उसी भाषा में 'T' को किस प्रकार लिखा जाएगा?

(1) %
(2) ! ✔
(3) 3
(4) $

Q.17 B, C, D, E, G, K and T are sitting around a circular table, facing the centre. T sits third to the right of B. T sits to the immediate right of E. E sits third to the left of G.
C is not an immediate neighbour of E. Only one person sits between K and D when counted from the left of D.
How many persons sit between C and D when counted from the right of C?

B, C, D, E, G, K और T, एक गोल मेज के परितः उसके केंद्र की ओर अभिमुख होकर बैठे हैं। T, B के दाएं तीसरे स्थान पर बैठा है। T, E के ठीक दाएं पड़ोस में बैठा है। E, G के बाएं तीसरे स्थान पर बैठा है।
C, E का निकटतम पड़ोसी नहीं है। D के बाएं से गिनने पर, K और D के बीच केवल एक व्यक्ति बैठा है।
C के दाएं से गिनने पर, C और D के बीच कितने व्यक्ति बैठे हैं?

(1) One / एक
(2) Two / दो
(3) Four / चार
(4) Three / तीन ✔

Q.18 This question is based on the five three-digit numbers given below.
(Left) 684 392 463 951 725 (Right)
(Example: 697 - First digit = 6, second digit = 9 and third digit = 7)
Note- All operations are to be performed from left to right. If the third digit of the largest number is added to the first digit of the smallest number, what will be the resultant?

यह प्रश्न नीचे दी गई पाँच, तीन-अंकीय संख्याओं पर आधारित है।
(बाएँ) 684 392 463 951 725 (दाएँ)
(उदाहरण: 697 - पहला अंक = 6, दूसरा अंक = 9 और तीसरा अंक = 7)
नोट- सभी संक्रियाएँ बाएँ से दाएँ की जाएँगी यदि सबसे बड़ी संख्या के तीसरे अंक को सबसे छोटी संख्या के पहले अंक में जोड़ा जाए तो परिणाम क्या होगा?

(1) 4 ✔
(2) 7
(3) 11
(4) 8

Q.19 A, B, C, D, E and F live on six different floors of the same building. The lowermost floor of the building is numbered 1, the floor above it is numbered 2 and so on till the topmost floor is numbered 6.
Only two persons live below D. Only two persons live between D and E. F lives immediately below A, but not on the lowermost floor. Only three persons live between E and B.
How many persons live between C and E?

A, B, C, D, E और F एक ही इमारत के छह अलग-अलग तलों पर रहते हैं। इमारत में सबसे निचले तल का क्रमांक 1 है, उसके ऊपर वाले तल का क्रमांक 2 है और इसी प्रकार सबसे ऊपरी तल का क्रमांक 6 है।
D के नीचे केवल दो व्यक्तिरहते हैं। D और E के बीच केवल दो व्यक्तिरहते हैं। F, A के ठीक नीचे रहता है, लेकिन सबसे निचले तल पर नहीं। E और B के बीच केवल तीन व्यक्तिरहते हैं।
C और E के बीच कितने व्यक्तिरहते हैं?

(1) Two / दो
(2) Three / तीन
(3) One / एक
(4) Four / चार ✔

Q.20 Read the given statements and conclusions carefully. Assuming that the information given in the statements is true, even if it appears to be at variance with commonly known facts, decide which of the given conclusions logically follow(s) from the statements.
Statements:
All bears are goats.
All goats are horses.
Some goats are donkeys.
Conclusions:
(I) Some horses are donkeys.
(II) Some bears are donkeys.

दिए गए कथनों और निष्कर्षों को ध्यानपूर्वक पढ़ें। यह मानते हुए कि कथनों में दी गई जानकारी सत्य है, भले ही वह सामान्यतः ज्ञात तथ्यों से भिन्न प्रतीत होती हो, निर्णय कीजिए कि दिए गए निष्कर्षों में से कौन- सा/से निष्कर्ष, कथनों का तार्किक रूप से अनुसरण करता है/करते हैं।
कथन:
सभी भालू, बकरी हैं।
सभी बकरी, घोड़े हैं।
कुछ बकरी, गधे हैं।
निष्कर्ष:
(I) कुछ घोड़े, गधे हैं।
(II) कुछ भालू, गधे हैं।

(1) Only conclusion II follows / केवल निष्कर्ष II अनुसरण करता है
(2) Neither conclusion I nor II follows / न तो निष्कर्ष I और न ही II अनुसरण करता है
(3) Both conclusions I and II follow / निष्कर्ष I और II दोनों अनुसरण करते हैं
(4) Only conclusion I follows / केवल निष्कर्ष I अनुसरण करता है ✔

Q.21 In the following number-pairs, the second number is obtained by performing certain mathematical operations on the first number. By which numbers should X and Y be replaced so that the pattern of the two numbers on the left side of :: is the same as the pattern of the two numbers on the right side of ::?
(NOTE: Operations should be performed on the whole numbers, without breaking down the numbers into their constituent digits.
E.g. 13 – Operations on 13 such as adding / subtracting / multiplying etc. to 13 can be performed on 13 itself. Breaking down 13 into 1 and 3 and then performing mathematical operations on 1 and 3 is not allowed.)
X : 11 :: 6 : Y

निम्नलिखित संख्या-युग्मों में, पहली संख्या पर निश्चित गणितीय संक्रियाएँ करके दूसरी संख्या प्राप्त की जाती है। किन संख्याओं द्वारा X और Y को प्रतिस्थापित किया जाना चाहिए जिससे कि :: के बाईं ओर की दो संख्याओं का पैटर्न, :: के दाईं ओर की दो संख्याओं के पैटर्न के समान हो जाए?
(नोट: संख्याओं को उनके घटक अंकों में तोड़े बिना, संक्रियाएँ पूर्ण संख्याओं पर की जानी चाहिए।
उदाहरण के लिए 13 को लीजिए - 13 पर संक्रियाएँ जैसे कि 13 में जोड़ना / घटाना / गुणा करना आदि 13 पर ही की जा सकती हैं। 13 को 1 और 3 में तोड़ने तथा फिर 1 और 3 पर गणितीय संक्रियाएँ करने की अनुमति नहीं है।)
X : 11 :: 6 : Y

(1) X = 1, Y = 8
(2) X = 1, Y = 38
(3) X = 3, Y = 38 ✔
(4) X = 3, Y = 8

Q.22 If '+' means '–', '–' means '×', '×' means '÷' and '÷' means '+', then what will come in place of the question mark (?) in the following equation?
25 × 5 ÷ 16 + 2 – 8 = ?
यदि '+' का अर्थ '–' है, '–' का अर्थ '×' है, '×' का अर्थ '÷' है और '÷' का अर्थ '+' है, तो निम्नलिखित समीकरण में प्रश्न-चिह्न (?) के स्थान पर क्या आएगा?
25 × 5 ÷ 16 + 2 – 8 = ?

(1) 9
(2) 11
(3) 17
(4) 5 ✔

Q.23 What should come in place of the question mark (?) in the following series?
218 221 227 236 248 ?
निम्नलिखित शृंखला में प्रश्न-चिन्ह (?) के स्थान पर क्या आना चाहिए?
218 221 227 236 248 ?

(1) 243
(2) 273
(3) 253
(4) 263 ✔

Q.24 Two sets of numbers are given below. In each set of numbers, a certain mathematical operation on the first number results in the second number. Similarly, a certain mathematical operation on the second number results in the third number, and so on. Which of the given options follows the same set of operations as in the given sets?
(NOTE: Operations should be performed on the whole numbers, without breaking down the numbers into their constituent digits.
E.g. 13 – Operations on 13 such as adding/subtracting/multiplying etc. to 13 can be performed. Breaking down 13 into 1 and 3 and then performing mathematical operations on 1 and 3 is not allowed.)
17 - 25 - 33 - 41 23 - 31 - 39 - 47
नीचे संख्याओं के दो समुच्चय दिए गए हैं। प्रत्येक संख्याओं के समुच्चय में, पहली संख्या पर एक निश्चित गणितीय संक्रिया करने पर दूसरी संख्या प्राप्त होती है। इसी प्रकार, दूसरी संख्या पर एक निश्चित गणितीय संक्रिया करने पर तीसरी संख्या प्राप्त होती है, इसी प्रकार आगे भी संख्याएँ प्राप्त होती हैं। दिए गए विकल्पों में से कौन-सा विकल्प, दिए गए समुच्चयों प्रयुक्त समान संक्रियाओं का अनुसरण करता है?
(नोट: संख्याओं को उनके घटक अंकों में तोड़े बिना संक्रियाएं पूर्ण संख्याओं पर की जानी चाहिए।
उदाहरण के लिए, 13 को लीजिए - 13 पर संक्रियाएं जैसे 13 में जोड़ना/घटाना/गुणा करना आदि की जा सकती हैं। 13 को 1 और 3 में तोड़ने तथा फिर 1 और 3 पर गणितीय संक्रियाएं करने की अनुमति नहीं है।)
17 - 25 - 33 - 41 23 - 31 - 39 - 47

(1) 38 - 46 - 54 - 72
(2) 29 - 37 - 45 - 53 ✔
(3) 32 - 40 - 46 - 54
(4) 27 - 35 - 53 - 61

Q.25 Which of the following letter-clusters will replace # and % so that the pattern and relationship between the letter-cluster pair on the left side of :: is the same as the pattern and relationship between the letter-cluster pair on the right side of ::?

: HJE :: QSN : %

निम्नलिखित में से कौन-सा अक्षर समूह # और % को प्रतिस्थापित करेगा ताकि :: के बाईं ओर के अक्षर समूह युग्म के बीच का पैटर्न और संबंध, :: के दाईं ओर के अक्षर समूह युग्म के बीच के पैटर्न और संबंध के समान हो?

: HJE :: QSN : %

(1) # = NPK, % = KMG

(2) # = NPK, % = KNH

(3) # = NPK, % = KMH ✔

(4) # = NPL, % = KMH

Q.26 If '+' and '÷' are interchanged and '×' and '−' are interchanged, then what will come in place of the question mark (?) in the following equation?

72 + 8 × 4 ÷ 15 – 6 = ?

यदि '+' और '÷' को परस्पर बदल दिया जाए तथा '×' और '−' को परस्पर बदल दिया जाए, तो निम्नलिखित समीकरण में प्रश्न-चिह्न (?) के स्थान पर क्या आएगा?

72 + 8 × 4 ÷ 15 – 6 = ?

(1) 95 ✔

(2) 90

(3) 89

(4) 101

Q.27 Three of the following number-pairs are alike in some manner and hence form a group. Which number-pair does NOT belong to that group?

1. 9-729
2. 6-216
3. 4-62
4. 7-343

निम्नलिखित संख्या युग्मों में से तीन किसी प्रकार से एकसमान हैं और इसलिए एक समूह बनाते हैं। कौन- सा संख्या युग्म, उस समूह से संबंधित नहीं है?

1. 9-729
2. 6-216
3. 4-62
4. 7-343

(1) 3 ✔

(2) 4

(3) 1

(4) 2

QuickSarkari.com | WhatsApp Channel | Telegram: t.me/quick_sarkari

Q.28 Identify the figure from the options that, when placed in place of ? in the following figure series, will logically complete the series.

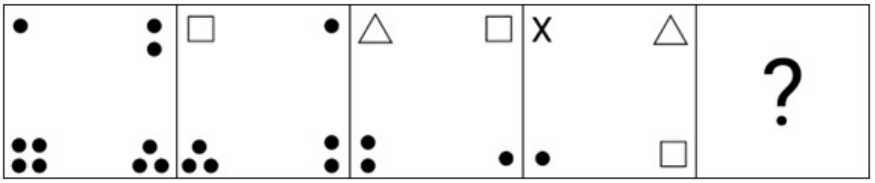

विकल्पों में से उस आकृति की पहचान कीजिए जिसे निम्न आकृति-शृंखला में ? के स्थान पर रखने से शृंखला तार्किक रूप से पूर्ण हो जाएगी?

(1) 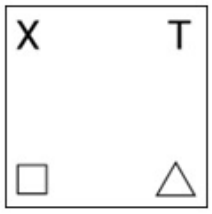

(2) 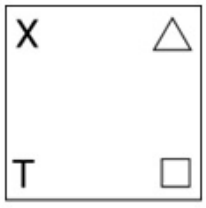

(3) 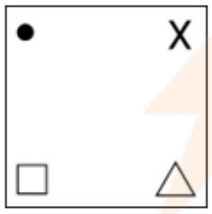

(4) 

✔

Q.29 What will come in place of the question mark (?) in the given series?

1 3 7 15 31 ?

दी गई श्रृंखला में प्रश्न-चिह्न (?) के स्थान पर क्या आएगा?

1 3 7 15 31 ?

(1) 70

(2) **63** ✔

(3) 65

(4) 60

QuickSarkari.com | WhatsApp Channel | Telegram: t.me/quick_sarkari

Q.30 Three of the following four letter-cluster pairs are alike in a certain way based on the English alphabetical order and thus form a group. Which letter-cluster does NOT belong to that group?
(Note: The odd letter-cluster is not based on the number of consonants/vowels or their position in the letter-cluster.)
अंग्रेजी वर्णमाला क्रम पर आधारित, निम्नलिखित चार अक्षर-समूह युग्मों में से तीन एक निश्चित तरीके से एकसमान हैं और इस प्रकार एक ग्रुप बनाते हैं। कौन-सा अक्षर-समूह उस ग्रुप से संबंधित नहीं है?
(नोट: असंगत अक्षर-समूह, व्यंजनों/स्वरों की संख्या या अक्षर-समूह में उनकी स्थिति पर आधारित नहीं है।)

(1) MOK
(2) SUQ
(3) QSP ✔
(4) EGC

Q.31 Two sets of numbers are given below. In each set of numbers, the second number is obtained by performing certain mathematical operations on the first number. Similarly, the third number is obtained by performing certain mathematical operations on the second number, and so on. Which of the following options follows the same set of operations as used in the sets given in the question?
(NOTE: Breaking down a two/three-digit number into separate digits for operations is not allowed.
For example, if 37 is followed by 10, this operation is not obtained by 3 + 7, because breaking down a two-digit number into separate digits is not allowed.)
46 – 23 – 30 – 60, 58 – 29 – 36 – 72
नीचे संख्याओं के दो सम्मुचय दिए गए हैं। प्रत्येक संख्या सम्मुचय में, पहली संख्या पर एक निश्चित गणितीय संक्रियाएं करके दूसरी संख्या प्राप्त की गई है। इसी प्रकार, दूसरी संख्या पर एक निश्चित गणितीय संक्रियाएं करके तीसरी संख्या प्राप्त की गई है, और इसी प्रकार आगे की भी संख्या प्राप्त की गई है। निम्नलिखित में से कौन-सा विकल्प, प्रश्न में दिए गए सम्मुचयों में प्रयुक्त संक्रिया-समूह का अनुसरण करता है?
(नोट: दो/तीन अंकीय संख्या को संक्रियाओं हेतु अलग-अलग अंकों में तोड़ने की अनुमति नहीं है।
उदाहरण के लिए, यदि 37 के बाद 10 है, तो यह संक्रिया 3 + 7 द्वारा प्राप्त नहीं किया गया है, क्योंकि दो अंकीय संख्या को अलग-अलग अंकों में तोड़ने की अनुमति नहीं है।)
46 – 23 – 30 – 60, 58 – 29 – 36 – 72

(1) 72 – 36 – 43 – 76
(2) 54 – 27 – 34 – 68 ✔
(3) 70 – 35 – 44 – 88
(4) 64 – 32 – 40 – 80

Q.32 Three of the following four letter-cluster pairs are alike in a certain way based on the English alphabetical order and thus form a group. Which letter-cluster does NOT belong to that group? (Note: The odd letter-cluster is not based on the number of consonants/vowels or their position.)
अंग्रेजी वर्णमाला क्रम पर आधारित, निम्नलिखित चार अक्षर-समूह युग्मों में से तीन एक निश्चित तरीके से एकसमान हैं और इस प्रकार एक ग्रुप बनाते हैं। कौन-सा अक्षर-समूह उस ग्रुप से संबंधित नहीं है? (नोट: असंगत अक्षर-समूह, व्यंजनों/स्वरों की संख्या या उनकी स्थिति पर आधारित नहीं है।)

(1) CEG
(2) RUX ✔
(3) KMO
(4) FHJ

Q.33 Which of the following letter-clusters should replace # and % so that the pattern and relationship followed between the letter-cluster pair on the left side of :: is the same as the pattern and relationship followed between the letter-cluster pair on the right side of ::?

: OKM :: WSU : %

निम्नलिखित में से किस अक्षर-समूह द्वारा # और % को प्रतिस्थापित किया जाना चाहिए ताकि :: के बाईं ओर के अक्षर-समूह युग्म के बीच अनुसरण किया गया पैटर्न और संबंध, :: के दाईं ओर के अक्षर-समूह युग्म के बीच अनुसरण किए गए पैटर्न और संबंध के समान हो?

: OKM :: WSU : %

(1) # = TPR, % = RNP ✔

(2) # = TPS, % = RNP

(3) # = TPR, % = RNO

(4) # = TPR, % = ROP

Q.34 If 'V' means '÷', 'E' means '×', 'L' means '+' and 'N' means '–', then what will come in place of the question mark (?) in the following equation?

14 E 16 N 18 L 98 V 14 = ?

यदि 'V' का अर्थ '÷' है, 'E' का अर्थ '×' है, 'L' का अर्थ '+' है और 'N' का अर्थ '–' है, तो निम्नलिखित समीकरण में प्रश्न-चिह्न (?) के स्थान पर क्या आएगा?

14 E 16 N 18 L 98 V 14 = ?

(1) 420

(2) 156

(3) 216

(4) 213 ✔

Q.35 Select the set in which the numbers are related in the same way as are the numbers of the following sets.

(NOTE: Operations should be performed on the whole numbers, without breaking down the numbers into their constituent digits.

E.g. 13 – Operations on 13 such as adding/subtracting/multiplying etc. to 13 can be performed. Breaking down 13 into 1 and 3 and then performing mathematical operations on 1 and 3 is not allowed.)

(11, 6, 85)

(14, 5, 171)

उस सेट का चयन कीजिए, जिसमें संख्याएं उसी प्रकार से संबंधित हैं जिस प्रकार निम्नलिखित सेटों की संख्याएं संबंधित है।

(नोट: संख्याओं को उनके घटक अंकों में तोड़े बिना संक्रियाएं पूर्ण संख्याओं पर की जानी चाहिए।

उदाहरण के लिए, 13 को लीजिए - 13 पर संक्रियाएं जैसे 13 में जोड़ना/घटाना/गुणा करना आदि की जा सकती हैं। 13 को 1 और 3 में तोड़ने तथा फिर 1 और 3 पर गणितीय संक्रियाएं करने की अनुमति नहीं है।)

(11, 6, 85)

(14, 5, 171)

(1) (7, 3, 42)

(2) (8, 2, 60) ✔

(3) (6, 4, 24)

(4) (12, 10, 96)

Q.36 Select the correct mirror image of the given figure when the mirror is placed at MN as shown below.

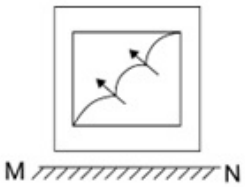

जब दर्पण को नीचे दिखाए अनुसार MN पर रखा जाता है, तो दी गई आकृति के सही दर्पण प्रतिबिंब का चयन कीजिए।

(1) 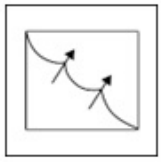

(2) 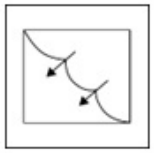
✔

(3) 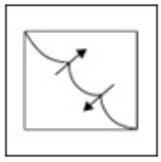

(4) 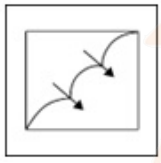

Q.37 Select the set in which the numbers are related in the same way as are the numbers of the following sets.
(NOTE: Operations should be performed on the whole numbers, without breaking down the numbers into their constituent digits.
E.g. 13 – Operations on 13 such as adding/subtracting/multiplying etc. to 13 can be performed. Breaking down 13 into 1 and 3 and then performing mathematical operations on 1 and 3 is not allowed)
(15, 6, 90)
(24, 3, 72)

उस समुच्चय का चयन करें जिसमें संख्याएँ उसी तरह से संबंधित हैं जैसे कि निम्नलिखित समुच्चयों की संख्याएँ संबंधित हैं।
(नोट: संख्याओं को उनके घटक अंकों में तोड़े बिना पूर्ण संख्याओं पर संक्रियाएँ की जानी चाहिए।
उदाहरण के लिए 13 को लीजिए - 13 पर संक्रियाएँ, जैसे 13 में जोड़ना/घटाना/गुणा करना आदि, की जा सकती हैं। 13 को 1 और 3 में तोड़ना तथा फिर 1 और 3 पर गणितीय संक्रियाएँ करने की अनुमति नहीं है)
(15, 6, 90)
(24, 3, 72)

(1) (26, 4, 104) ✔

(2) (23, 5, 105)

(3) (32, 3, 92)

(4) (28, 4, 92)

QuickSarkari.com | WhatsApp Channel | Telegram: t.me/quick_sarkari

Q.38 If '+' and '−' are interchanged and '×' and '÷' are interchanged, then what will come in place of the question mark (?) in the following equation?
101 ÷ 78 + 13013 × 13 − 72 = ?
यदि '+' और '−' को परस्पर बदल दिया जाए तथा '×' और '÷' को परस्पर बदल दिया जाए, तो निम्नलिखित समीकरण में प्रश्न-चिह्न (?) के स्थान पर क्या आएगा?
101 ÷ 78 + 13013 × 13 − 72 = ?

(1) 6449
(2) 5669
(3) 6949 ✔
(4) 5889

Q.39 Three of the following four letter-cluster pairs are alike in a certain way based on the English alphabetical order and thus form a group. Which letter-cluster pair does NOT belong to that group?
(Note: The odd letter-cluster pair is not based on the number of consonants/vowels or their position.)
अंग्रेजी वर्णमाला क्रम पर आधारित, निम्नलिखित चार अक्षर-समूह युग्मों में से तीन एक निश्चित तरीके से एकसमान हैं और इस प्रकार एक ग्रुप बनाते हैं। कौन- सा अक्षर-समूह युग्म उस ग्रुप से संबंधित नहीं है?
(नोट: असंगत अक्षर-समूह युग्म, व्यंजनों/स्वरों की संख्या या उनकी स्थिति पर आधारित नहीं है।)

(1) SW – QU
(2) NR – PT ✔
(3) UY – SW
(4) QU – OS

Q.40 Which of the following letter-clusters should replace # and % so that the pattern and relationship followed between the letter-cluster pair on the left side of :: is the same as the pattern and relationship followed between the letter-cluster pair on the right side of ::?
: MHJ :: VQS : %
निम्नलिखित में से किस अक्षर-समूह द्वारा # और % को प्रतिस्थापित किया जाना चाहिए ताकि :: के बाईं ओर के अक्षर-समूह युग्म के बीच अनुसरण किया गया पैटर्न और संबंध, :: के दाईं ओर के अक्षर-समूह युग्म के बीच अनुसरण किए गए पैटर्न और संबंध के समान हो?
: MHJ :: VQS : %

(1) # = SNP, % = PKM ✔
(2) # = SNP, % = PKN
(3) # = SNO, % = PKM
(4) # = SNP, % = PLM

General Awareness

Q.41 In which state is the setting up of a Makhana Board proposed in the Budget 2025-26?
2025-26 के बजट में किस राज्य में मखाना बोर्ड की स्थापना का प्रस्ताव है?

(1) Madhya Pradesh / मध्य प्रदेश
(2) Bihar / बिहार ✔
(3) West Bengal / पश्चिम बंगाल
(4) Uttar Pradesh / उत्तर प्रदेश

Q.42 Which of the following military commanders of Akbar led the expedition against Malwa?
निम्नलिखित में से अकबर के किस सैन्य कमांडर ने मालवा के विरुद्ध अभियान (expedition) का नेतृत्व किया था?

(1) Adham Khan / अधम खान ✔
(2) Asaf Khan / आसफ खान
(3) Daud Khan / दाऊद खान
(4) Zafar Khan / जफर खान

Q.43 Which of the following is the result for the speculative demand for money in a liquidity trap?
तरलता जाल में धन की अपेक्षी मांग के परिणामस्वरूप निम्नलिखित में से कौन-सा परिणाम होता है?

(1) It decreases to zero. / यह घटकर शून्य हो जाती है।
(2) It becomes negative. / यह ऋणात्मक हो जाती है।
(3) It remains constant. / यह स्थिर रहती है।
(4) It increases to infinity. / यह अनंत तक बढ़ जाती है। ✔

Q.44 In which Indian city was the first edition of the Kho Kho World Cup held from 13 to 19 January 2025?
13 से 19 जनवरी 2025 तक खो-खो विश्व कप (Kho Kho World Cup) का पहला संस्करण किस भारतीय शहर में आयोजित किया गया था?

(1) Hyderabad / हैदराबाद
(2) Chennai / चेन्नई
(3) New Delhi / नई दिल्ली ✔
(4) Kolkata / कोलकाता

Q.45 Which of the following countries became the second country to launch a digital pilot licence in February 2025?
निम्नलिखित में से कौन-सा देश, फरवरी 2025 में डिजिटल पायलट लाइसेंस शुरू करने वाला दूसरा देश बन गया?

(1) India / भारत ✔
(2) UK
(3) Singapore / सिंगापुर
(4) USA

Q.46 Who became the first Indian woman to win an Olympic medal in shooting at the Paris 2024 Olympics?
पेरिस 2024 ओलंपिक में निशानेबाजी में ओलंपिक पदक जीतने वाली प्रथम भारतीय महिला कौन बनीं?

(1) Anjali Bhagwat / अंजलि भागवत
(2) Heena Sidhu / हीना सिद्धू
(3) Manu Bhaker / मनु भाकर ✔
(4) Apurvi Chandela / अपूर्वी चंदेला

Q.47 Which city of India had the highest PM2.5 concentration in the year 2024?
वर्ष 2024 में भारत के किस शहर में PM2.5 सांद्रता सबसे अधिक थी?

(1) Byrnihat / बर्नीहाट
(2) Gurgaon / गुड़गांव
(3) Greater Noida / ग्रेटर नोएडा
(4) Delhi / दिल्ली ✔

Q.48 In Buddhist architecture, _____ refers to a shrine or sanctuary, particularly a prayer hall with a stupa at one end.

बौद्ध वास्तुकला में, _____ एक मंदिर या तीर्थस्थान को संदर्भित करता है, विशेष रूप से एक प्रार्थना कक्ष जिसमें एक छोर पर स्तूप होता है।

(1) Mast / मस्त (mast)

(2) Mound / टीला (mound)

(3) Yasti / यस्ति (yasti)

(4) Chaitya / चैत्य (chaitya) ✔

Q.49 What is the role of the Cash Reserve Ratio (CRR) in credit creation by banks?

बैंकों द्वारा साख निर्माण में नकद आरक्षित अनुपात (CRR) की क्या भूमिका है?

(1) It limits the amount of loans by requiring banks to keep a portion of deposits as reserves. / यह बैंकों को जमा राशि का एक हिस्सा आरक्षित के रूप में रखने की आवश्यकता के द्वारा ऋण की राशि को सीमित करता है। ✔

(2) It is a voluntary reserve kept by banks for emergency situations. / यह आपातकालीन स्थितियों के लिए बैंकों द्वारा रखा जाने वाला स्वैच्छिक आरक्षित है।

(3) It significantly increases the total amount of loans that banks can safely provide to borrowers. / यह उस ऋण की कुल राशि में महत्वपूर्ण वृद्धि करता है जिसे बैंक उधारकर्ताओं को सुरक्षित रूप से प्रदान कर सकते हैं।

(4) It has no effect on the lending capacity of banks. / इसका बैंकों के उधार देने के सामर्थ्य पर कोई प्रभाव नहीं पड़ता है।

Q.50 Name the open-source video transcreation platform developed by AI4Bhārat that allows users to create and edit audio in various Indian languages.

AI4Bhārat द्वारा विकसित ओपन-सोर्स वीडियो ट्रांसक्रिएशन प्लेटफ़ॉर्म का नाम बताइए जो उपयोगकर्ताओं को विभिन्न भारतीय भाषाओं में ऑडियो करने बनाने और एडिट करने की सुविधा देता है।

(1) Chitralekha / चित्रलेखा (Chitralekha) ✔

(2) Sarvam-1 AI / सर्वम-1 AI (Sarvam-1 AI)

(3) BharatGen / भारतजेन (BharatGen)

(4) BHASHINI / भाषिणी (BHASHINI)

Q.51 During the reign of which of the following Delhi Sultans did the Bahmani Kingdom emerge on the political horizon of the Deccan?

निम्नलिखित में से किस दिल्ली सुल्तान के शासनकाल के दौरान दक्कन के राजनीतिक क्षितिज पर बहमनी साम्राज्य का उदय हुआ था?

(1) Nasiruddin Mahmud / नासिरुद्दीन महमूद

(2) Ghiyasuddin Balban / गयासुद्दीन बलबन

(3) Muhammad-bin-Tughlaq / मुहम्मद-बिन-तुगलक ✔

(4) Alauddin Khalji / अलाउद्दीन खिलजी

Q.52 _____ provides a platform for universal access to banking facilities with at least one basic banking account for every household.

_____ प्रत्येक परिवार के लिए कम से कम एक बुनियादी बैंकिंग खाते के साथ बैंकिंग सुविधाओं तक सार्वभौमिक पहुँच के लिए एक मंच प्रदान करता है।

(1) Jan Dhan Yojana / जन धन योजना (Jan Dhan Yojana) ✔

(2) Financial inclusion / वित्तीय समावेशन (Financial inclusion)

(3) Basel norms / बेसल मानदंड (Basel norms)

(4) Direct Benefit Transfer (DBT) / प्रत्यक्ष लाभ अंतरण (Direct Benefit Transfer - DBT)

Q.53 What does a declining Gini coefficient in rural and urban areas indicate?

ग्रामीण और शहरी क्षेत्रों में घटता गिनी गुणांक (Gini coefficient) क्या निरूपित करता है?

(1) Decreasing income inequality / ह्रासमान आय असमानता ✔

(2) Stagnation in economic growth / आर्थिक विकास में गतिरोध

(3) Increasing income inequality / वर्धमान आय असमानता

(4) Decline in overall economic activity / समग्र आर्थिक गतिविधि में कमी

Q.54 Who founded the Indian Association in the year 1876?

वर्ष 1876 में भारतीय संघ (Indian Association) की नींव किसने रखी थी?

(1) Dadabhai Naoroji / दादाभाई नौरोजी

(2) Surendranath Banerjee / सुरेन्द्रनाथ बनर्जी ✔

(3) Mahadev Govind Ranade / महादेव गोविंद रानाडे

(4) Pherozeshah Mehta / फिरोजशाह मेहता

Q.55 Which of the following statements is true regarding the industrial policy after 1991?

1991 के बाद औद्योगिक नीति के संबंध में निम्नलिखित में से कौन-सा कथन सत्य है?

(1) Foreign investment in any industry was restricted to 1%. / किसी भी उद्योग में विदेशी निवेश को सीमित करके 1% कर दिया गया।

(2) Licensing was abolished for most industries. / अधिकांश उद्योगों के लिए लाइसेंसिंग को रद्द कर दिया गया। ✔

(3) Small-scale industries were fully protected from foreign competition. / लघु उद्योगों को विदेशी प्रतिस्पर्धा से पूरी तरह सुरक्षित रखा गया।

(4) The presence of the public sector increased in all industries. / सभी उद्योगों में सार्वजनिक क्षेत्र की उपस्थिति बढ़ गई।

Q.56 Which of the following statements is true about the relationship between human capital and economic growth?

मानव पूंजी और आर्थिक विकास के बीच संबंध के बारे में निम्नलिखित में से कौन-सा कथन सत्य है?

(1) There is no relationship between economic growth and human capital formation. / आर्थिक विकास और मानव पूँजी निर्माण में कोई संबंध नहीं होता है।

(2) Investment in human capital can increase economic growth. / मानव पूँजी में निवेश से आर्थिक विकास बढ़ सकता है। ✔

(3) Higher investment in human capital reduces economic growth. / मानव पूँजी में अधिक निवेश से आर्थिक विकास कम होता है।

(4) Economic growth depends entirely on physical capital, not on human capital. / आर्थिक विकास पूरी तरह से भौतिक पूँजी पर निर्भर करता है, न कि मानव पूँजी पर।

Q.57 Which of the following buildings in Kolkata is the first Anglican holy place of the Victorian era?

कोलकाता में निम्नलिखित में से कौन-सी इमारत विक्टोरियन युग का पहला एंग्लिकन पवित्र स्थान (Anglican holy place) है?

(1) St. Paul's Cathedral / सेंट पॉल कैथेड्रल ✔

(2) Victoria Memorial Hall / विक्टोरिया मेमोरियल हॉल

(3) Kolkata Town Hall / कोलकाता टाउन हॉल

(4) Marble Palace / मार्बल पैलेस

Q.58 In 1942, which of the following hoisted the Indian national flag at the Gowalia Tank Maidan in Bombay during the Quit India Movement?

1942 में, भारत छोड़ो आंदोलन के दौरान बॉम्बे के गोवालिया टैंक मैदान में निम्नलिखित में से किसने भारतीय राष्ट्रीय ध्वज फहराया था?

(1) Sucheta Kripalani / सुचेता कृपलानी

(2) Sarojini Naidu / सरोजिनी नायडू

(3) **Aruna Asaf Ali / अरुणा आसफ अली ✔**

(4) Bhikaji Cama / भीकाजी कामा

Q.59 The State of States report 2025 mentions that India's ambition to achieve a $10 trillion economy by 2030 is facing challenges related to _____.

2025 की राज्यों की स्थिति रिपोर्ट (State of States report) में उल्लेख किया गया है कि 2030 तक $10 ट्रिलियन की अर्थव्यवस्था हासिल करने की भारत की महत्वाकांक्षा को _____ से संबंधित चुनौतियों का सामना करना पड़ रहा है।

(1) Population-resource paradox / जनसंख्या-संसाधन विरोधाभास

(2) **Energy-economic growth paradox / ऊर्जा-आर्थिक संवृद्धि विरोधाभास ✔**

(3) Urban-rural development paradox / शहरी-ग्रामीण विकास विरोधाभास

(4) Industrial-agricultural paradox / औद्योगिक-कृषि विरोधाभास

Q.60 By what name is the autobiography of Subhas Chandra Bose known?

सुभाष चन्द्र बोस की आत्मकथा किस नाम से प्रसिद्ध है?

(1) My Life Journey / माय लाइफ जर्नी (My Life Journey)

(2) My Struggle of Life / माय स्ट्रगल ऑफ लाइफ (My Struggle of Life)

(3) **An Indian Pilgrim / एन इंडियन पिलग्रीम (An Indian Pilgrim) ✔**

(4) My Life Story / माय लाइफ स्टोरी (My Life Story)

Q.61 Hail is a type of precipitation in which _____.

ओला एक प्रकार की वर्षा है, जिसमें _____।

(1) **solid balls of ice fall with the rain / बारिश में बर्फ के ठोस गोले गिरते हैं ✔**

(2) small crystals of ice are deposited on a cold surface / ठंडी सतह पर बर्फ के छोटे-छोटे क्रिस्टल निक्षेपित हो जाते हैं

(3) water droplets are deposited around objects kept on the ground / ज़मीन पर रखी वस्तुओं के आस-पास जल की बूंदें निक्षेपित हो जाती हैं

(4) a feather-like structure of ice crystals forms on the surface of lakes / झीलों की सतह पर बर्फ के क्रिस्टलों की पंखनुमा संरचना बन जाती है

Q.62 Laxmipriya Mohapatra was associated with which of the following classical dance forms of India?

लक्ष्मीप्रिया महापात्रा भारत के निम्नलिखित में से किस शास्त्रीय नृत्य शैली से जुड़ी थीं?

(1) Sattriya / सत्रिया

(2) **Odissi / ओडिसी ✔**

(3) Kuchipudi / कुचिपुड़ी

(4) Kathak / कथक

Q.63 Which of the following statements is correct regarding the composition and representation of the Rajya Sabha?

राज्यसभा के संघटन और प्रतिनिधित्व के संबंध में निम्नलिखित में से कौन-सा कथन सही है?

(1) The system of proportional representation by means of the single transferable vote is used only for the election of nominated members. / एकल संक्रमणीय मत के माध्यम से आनुपातिक प्रतिनिधित्व प्रणाली का उपयोग केवल मनोनीत सदस्यों के निर्वाचन के लिए किया जाता है।

(2) The maximum strength of the Rajya Sabha is 250, in which all members are indirectly elected. / राज्यसभा की अधिकतम सदस्य संख्या 250 है, जिसमें सभी सदस्य अप्रत्यक्ष रूप से निर्वाचित होते हैं।

(3) All Union Territories are represented in the Rajya Sabha. / राज्यसभा में, सभी संघ शासित प्रदेशों का प्रतिनिधित्व है।

(4) The Fourth Schedule of the Constitution deals with the allocation of seats in the Rajya Sabha to the States and Union Territories. / संविधान की चौथी अनुसूची, राज्यों और केंद्र शासित प्रदेशों को राज्यसभा में सीटों के आवंटन से संबंधित है। ✔

Q.64 Which of the following factors cannot control the climate of a place?

निम्नलिखित में से कौन-सा घटक किसी स्थान की जलवायु को नियंत्रित नहीं कर सकता है?

(1) Altitude / ऊंचाई

(2) Type of soil / मृदा का प्रकार ✔

(3) Relief features / उच्चावच संरचनाएं

(4) Ocean currents / समुद्री धराएं

Q.65 The Kailasa Temple, carved out of a single rock, is an important architectural work located in which UNESCO World Heritage Site?

एक ही चट्टान को तराश कर बनाया गया कैलाश मंदिर (Kailasa Temple), एक महत्वपूर्ण वास्तुशिल्प कृति है, जो किस UNESCO विश्व धरोहर स्थल में स्थित है?

(1) Mahabalipuram / महाबलीपुरम

(2) Ellora / एलोरा ✔

(3) Hampi / हम्पी

(4) Karla / कार्ला

Q.66 According to Article 239 of the Indian Constitution, the number of Ministers in the Council of Ministers, including the Chief Minister, of the National Capital Territory of Delhi shall not exceed _____.

भारतीय संविधान के अनुच्छेद 239 के अनुसार, राष्ट्रीय राजधानी क्षेत्र दिल्ली के मुख्यमंत्री सहित मंत्रिपरिषद की संख्या, _____ से अधिक नहीं होगी।

(1) 15% of the total number of members of the Legislative Assembly / विधानसभा के कुल सदस्यों के 15%

(2) 10% of the total number of members of the Legislative Assembly / विधानसभा के कुल सदस्यों के 10% ✔

(3) 8% of the total number of members of the Legislative Assembly / विधानसभा के कुल सदस्यों के 8%

(4) 6% of the members of the Legislative Assembly / विधानसभा के सदस्यों के 6%

Q.67 Which of the following statements is correct regarding the dark reaction in photosynthesis?

प्रकाश संश्लेषण में अप्रकाशिक अभिक्रिया के संबंध में निम्नलिखित में से कौन-सा कथन सही है?

(1) This reaction depends only on adenosine triphosphate (ATP). / यह अभिक्रिया केवल ऐडेनोसिन ट्राइफॉस्फेट (ATP) पर निर्भर करती है।

(2) This reaction takes place in the dark. / यह अभिक्रिया अँधेरे में होती है।

(3) This reaction depends only on nicotinamide adenine dinucleotide phosphate (NADPH). / यह अभिक्रिया केवल निकोटिनैमाइड ऐडेनीन डाइन्यूक्लिओटाइड फॉस्फेट (NADPH) पर निर्भर करती है।

(4) This reaction does not take place directly in the light. / यह अभिक्रिया प्रत्यक्ष रूप से प्रकाश में नहीं होती है। ✔

Q.68 Which Article of the Indian Constitution deals with the provision of the duties and powers of the Comptroller and Auditor General of India?
भारतीय संविधान का कौन-सा अनुच्छेद, भारत के नियंत्रक एवं महालेखा परीक्षक के कर्तव्यों और शक्तियों के प्रावधान से संबंधित है?

(1) Article 150 / अनुच्छेद 150
(2) Article 151 / अनुच्छेद 151
(3) **Article 149 / अनुच्छेद 149 ✔**
(4) Article 148 / अनुच्छेद 148

Q.69 According to Koeppen's scheme, which type of climate does 'BShw' represent in India?
कोपेन की योजना के अनुसार भारत में 'BShw' किस प्रकार की जलवायु को दर्शाता है?

(1) Polar type / ध्रुवीय प्रकार
(2) **Semi-arid steppe climate / अर्ध-शुष्क स्टेपी जलवायु ✔**
(3) Monsoon with dry winter / शुष्क शीतकाल वाला मानसून
(4) Monsoon with dry summer / शुष्क ग्रीष्मकाल वाला मानसून

Q.70 Which of the following is NOT a genetic disorder?
निम्नलिखित में से कौन-सा एक आनुवंशिक विकार नहीं है?

(1) Sickle cell disease / दात्र कोशिका रोग (Sickle cell disease)
(2) Cleft lip and palate / खंड ओष्ठ और तालु (Cleft lip and palate)
(3) Liver fibrosis / यकृत तंतुमयता (Liver fibrosis)
(4) **Yellow fever / पीत ज्वर (Yellow fever) ✔**

Q.71 The organ that produces sperms in the human body is the _____.
मानव शरीर में शुक्राणु उत्पन्न करने वाला अंग _____ है।

(1) cervix / गर्भाशय ग्रीवा
(2) ovary / डिंबग्रंथि
(3) **testis / वृषण ✔**
(4) uterus / गर्भाशय

Q.72 Which of the following groups of rivers is included in the Indus Waters Treaty 1960?
निम्नलिखित में से नदियों का कौन-सा समूह, सिंधु जल संधि 1960 में शामिल है?

(1) Indus, Jhelum, Chenab, Ravi, Yamuna and Sutlej / सिंधु, झेलम, चिनाब, रावी, यमुना और सतलुज
(2) **Indus, Jhelum, Chenab, Ravi, Beas and Sutlej / सिंधु, झेलम, चिनाब, रावी, व्यास और सतलुज ✔**
(3) Indus, Jhelum, Ghaggar, Ravi, Beas and Sutlej / सिंधु, झेलम, घग्गर, रावी, व्यास और सतलुज
(4) Indus, Jhelum, Chenab, Ghaggar, Beas and Sutlej / सिंधु, झेलम, चिनाब, घग्गर, व्यास और सतलुज

Q.73 Which of the following Sanskrit language institutions is located in the state of Uttar Pradesh?
निम्नलिखित में से कौन-सा संस्कृत भाषा संस्थान उत्तर प्रदेश राज्य में स्थित है?

(1) Rashtriya Sanskrit Vishwavidyalaya / राष्ट्रीय संस्कृत विश्वविद्यालय
(2) **Sampurnanand Sanskrit Vishwavidyalaya / संपूर्णानंद संस्कृत विश्वविद्यालय ✔**
(3) Shree Somnath Sanskrit Vishwavidyalaya / श्री सोमनाथ संस्कृत विश्वविद्यालय
(4) Shri Lal Bahadur Shastri Rashtriya Sanskrit Vishwavidyalaya / श्री लाल बहादुर शास्त्री राष्ट्रीय संस्कृत विश्वविद्यालय

QuickSarkari.com | WhatsApp Channel | Telegram: t.me/quick_sarkari

Q.74 Konar, Haharo, Jamunia, etc. are tributaries of which river?
कोनार, हाहारो, जमुनिया आदि किस नदी की सहायक नदियाँ हैं?

(1) Mahanadi / महानदी
(2) Godavari / गोदावरी
(3) Son / सोन
(4) **Damodar / दामोदर ✔**

Q.75 Who was the first Lieutenant Governor of the Union Territory of Jammu and Kashmir?
केंद्र शासित प्रदेश, जम्मू और कश्मीर के पहले उपराज्यपाल कौन थे?

(1) B.T. Kulkarni / बी.टी. कुलकर्णी
(2) **Girish Chandra Murmu / गिरीश चंद्र मुर्मू ✔**
(3) Manoj Sinha / मनोज सिन्हा
(4) L.K. Jha / एल.के. झा

Q.76 Which of the following represents the three components of stupa architecture?
निम्नलिखित में से कौन-सा स्तूप वास्तुकला के तीन घटकों को निरूपित करता है?

(1) **Anda, Harmika, and Chattra / अंड, हर्मिका, और छत्र (Anda, Harmika, and Chattra) ✔**
(2) Harmika, Vedika, and Antevasin / हर्मिका, वेदिका, और अंतेवासिन (Harmika, Vedika, and Antevasin)
(3) Base, Shaft, and Capital / बेस, शैफ्ट और कैपिटल (Base, Shaft, and Capital)
(4) Garbhagriha, Shikhara, and Mandapa / गर्भगृह, शिखर और मंडप (Garbhagriha, Shikhara, and Mandapa)

Q.77 In India, population data measure size, sex ratio, density and which age-based population indicator?
भारत में, जनसंख्या आँकड़े आकार, लिंग अनुपात, घनत्व और किस आयु-आधारित जनसंख्या संकेतक को मापते हैं?

(1) Birth rate / जन्म दर
(2) Death rate / मृत्यु दर
(3) Fertility rate / प्रजनन दर
(4) **Dependency ratio / निर्भरता अनुपात ✔**

Q.78 Under the Citizenship Amendment Act 2019, Indian citizenship will NOT be considered for persons belonging to which of the following communities?
नागरिकता संशोधन अधिनियम 2019 के अंतर्गत, निम्नलिखित में से किस समुदाय से संबंधित व्यक्तियों के लिए भारतीय नागरिकता पर विचार नहीं किया जाएगा?

(1) Buddhists / बौद्ध
(2) Hindus / हिन्दू
(3) Parsis / पारसी
(4) **Muslims / मुसलमान ✔**

Q.79 As of December 2023, who is the Director General of Meteorology (India Meteorological Department) of the Government of India?
दिसंबर 2023 तक की स्थिति के अनुसार, भारत सरकार के मौसम विज्ञान (भारत मौसम विज्ञान विभाग) के महानिदेशक कौन हैं?

(1) Swapna Panickal / स्वप्ना पनिकल (Swapna Panickal)
(2) Roxy Mathew Koll / रॉक्सी मैथ्यू कोल (Roxy Mathew Koll)
(3) S.K. Satheesh / एस.के. सतीश (SK Satheesh)
(4) **Dr. Mrutyunjay Mohapatra / डॉ मृत्युंजय महापात्रा (Dr. Mrutyunjay Mohapatra) ✔**

Q.80 In the year 2021, the Government of India approved the continuation of the revised 'Samagra Shiksha Scheme' for a period of _____ years.

भारत सरकार ने वर्ष 2021 में संशोधित 'समग्र शिक्षा योजना' को _____ वर्ष की अवधि तक जारी रखने की मंजूरी दी थी।

(1) Four / चार ✔

(2) Twenty / बीस

(3) Three / तीन

(4) Ten / दस

Arithmetical and Numerical Ability

Q.81 Express $0.567\overline{8}$ as a vulgar fraction.

$0.567\overline{8}$ को साधारण भिन्न के रूप में व्यक्त करें।

(1) 5111/99

(2) 5111/9000 ✔

(3) 5222/9000

(4) 5222/990

Q.82 The following table shows the production (in units) of a plant over a period of six months.
July August September October November December 212 232 322 395 266 273 What is the ratio of the production done in July, September and November to the production done in August, October and December?

निम्नांकित तालिका में छह माह की अवधि में एक संयंत्र के उत्पादन (इकाइयों में) को दर्शाया गया है।
जुलाई अगस्त सितम्बर अक्टूबर नवम्बर दिसम्बर 212 232 322 395 266 273 जुलाई, सितम्बर और नवम्बर में किए गए उत्पादन का अगस्त, अक्टूबर और दिसम्बर में किए गए उत्पादन से अनुपात कितना है?

(1) 7 : 8

(2) 8 : 11

(3) 8 : 9 ✔

(4) 5 : 6

Q.83 When the selling price of a bed becomes 6 times its initial selling price, the profit becomes 10 times the initial profit. Find the initial profit percentage (in %).

एक बेड का विक्रय मूल्य, उसके प्रारंभिक विक्रय मूल्य का 6 गुना हो जाने पर लाभ, प्रारंभिक लाभ का 10 गुना हो जाता है। प्रारंभिक लाभ प्रतिशत (% में) ज्ञात कीजिए।

(1) 66.67

(2) 60

(3) 166.67

(4) 125 ✔

Q.84 From the following data, calculate the difference (in units) between the total wastage in the months of June and July.
May June July Wastage in plant A (in units) 250 240 150 Wastage in plant B (in units) 350 260 220
निम्नलिखित आँकड़ों से जून और जुलाई माह में कुल अपव्यय के बीच अंतर (इकाइयों में) की गणना कीजिए।
मई जून जुलाईसंयंत्र A में अपव्यय (इकाइयों में) 250 240 150 संयंत्र B में अपव्यय (इकाइयों में) 350 260 220

(1) 90
(2) 80
(3) 130 ✔
(4) 120

Q.85 Due to a decrease in the number of workers, the production in a factory decreases by 40%. By approximately what percentage should the working hours be increased to restore the production to its original level?
श्रमिकों की संख्या में कमी के कारण एक कारखाने में उत्पादन 40% कम हो जाता है। उत्पादन को मूल स्तर तक बहाल करने के लिए कार्य-घंटों में लगभग कितने प्रतिशत की वृद्धिकरनी होगी?

(1) 40%
(2) 71.77%
(3) 66.67% ✔
(4) 60%

Q.86 The average of 13 numbers is 8. If each number is multiplied by 8, what will be the new average?
13 संख्याओं का औसत 8 है। यदि प्रत्येक संख्या में 8 से गुणा किया जाए, तो नया औसत कितना होगा?

(1) 8
(2) 13
(3) 64 ✔
(4) 16

Q.87 Express $1.1\overline{24}$ in the form of p/q, where q is not zero.
$1.1\overline{24}$ को p/q के पदों में व्यक्त करें, जहाँ q शून्य नहीं है।

(1) 321/330
(2) 397/330
(3) 343/330
(4) 371/330 ✔

Q.88 Find the average of the first 220 even natural numbers.
प्रथम 220 सम प्राकृत संख्याओं का औसत ज्ञात कीजिए।

(1) 221.5
(2) 222
(3) 220.5
(4) 221 ✔

Q.89 A shopkeeper earns a profit of 20% and uses a weight that is 15% less than the actual weight. What is his overall actual profit percentage?

एक दुकानदार 20% लाभ कमाता है और वास्तविक से 15% कम वजन वाले बाट का उपयोग करता है। उसका कुल वास्तविक लाभ प्रतिशत कितना है?

(1) 500/17 %

(2) 800/17 %

(3) **700/17 % ✔**

(4) 900/17 %

Q.90 Due to a reduction in manpower, the production of a factory decreases by 36%. By approximately what percentage should the working hours be increased to restore the production to its original level?

जनबल में कमी के कारण, एक कारखाने के उत्पादन में 36% की कमी होती है। उत्पादन के मूल स्तर को पहले जैसा करने के लिए कार्य घंटों में लगभग कितने प्रतिशत की वृद्धिकी जानी चाहिए?

(1) 62.5%

(2) **56.25% ✔**

(3) 36%

(4) 64%

Q.91 Find the simple interest (in ₹) received on a sum of ₹3500 borrowed for 6 years at the rate of 5% per annum.

5% वार्षिक ब्याज दर पर 6 वर्ष के लिए उधार ली गई ₹3500 की राशि पर प्राप्त साधारण ब्याज (₹ में) ज्ञात कीजिए।

(1) 1010

(2) **1050 ✔**

(3) 1090

(4) 990

Q.92 Two students appeared in an examination. One of them secured 6 marks more than the other and his marks were 56% of the sum of their marks. What was the sum of the marks obtained by them?

दो विद्यार्थी एक परीक्षा में शामिल हुए। उनमें से एक ने दूसरे से 6 अंक अधिक प्राप्त किए और उसके अंक उनके अंकों के योग के 56% थे। उनके द्वारा प्राप्त अंकों का योगफल कितना था?

(1) 56

(2) **50 ✔**

(3) 51

(4) 44

Q.93 The average of 13 numbers is 9. If each number is multiplied by 2, what will be the new average?

13 संख्याओं का औसत 9 है। यदि प्रत्येक संख्या को 2 से गुणा किया जाए, तो नया औसत कितना होगा?

(1) **18 ✔**

(2) 9

(3) 13

(4) 2

Q.94 Find the amount received on ₹3,750 in 1 year at the rate of 8% per annum, if the interest is compounded half-yearly.

₹3,750 का 8% वार्षिक दर से 1 वर्ष में प्राप्त होने वाला मिश्रधन ज्ञात कीजिए जबकि ब्याज अर्धवार्षिक रूप से संयोजित होता है।

(1) ₹4065

(2) ₹3824

(3) **₹4056** ✔

(4) ₹4000

Q.95 Find the simple interest (in ₹) payable on a sum of ₹3500 for 2 years at the rate of 6% per annum.

₹3500 की धनराशि पर 6% वार्षिक ब्याज दर से 2 वर्षों का देय साधारण ब्याज (₹ में) ज्ञात कीजिए।

(1) 460

(2) 380

(3) 360

(4) **420** ✔

Q.96 Find the average of the first 221 even natural numbers.

प्रथम 221 सम प्राकृत संख्याओं का औसत ज्ञात कीजिए।

(1) 222.5

(2) **222** ✔

(3) 223

(4) 221.5

Q.97 Simplify the following.

[{(160 × 30 ÷ 2 + 8) × 35} ÷ 2408] × 3/6

निम्नलिखित को सरल कीजिए।

[{(160 × 30 ÷ 2 + 8) × 35} ÷ 2408] × 3/6

(1) 14

(2) 19

(3) 8.5

(4) **17.5** ✔

Q.98 Amit's income in 2019 was ₹25000. He gets a salary hike of 30% every year. What was his income (in ₹) in 2021?

2019 में अमित की आय ₹25000 थी। उसे प्रत्येक वर्ष 30% की वेतन वृद्धिमिलती है। 2021 में उसकी आय (₹ में) कितनी थी?

(1) **42250** ✔

(2) 40000

(3) 32500

(4) 25000

QuickSarkari.com | WhatsApp Channel | Telegram: t.me/quick_sarkari

Q.99 Laxman borrowed, from a bank at the rate of 10% per annum for 1 1/2 years, ₹72,000. If the interest is compounded half-yearly, then find the total compound interest payable by Laxman after 1 1/2 years.

लक्ष्मण ने एक बैंक से 10% वार्षिक दर पर 1 1/2 वर्ष के लिए ₹72,000 उधार लिए। यदि ब्याज अर्धवार्षिक रूप से संयोजित होता है, तो 1 1/2 वर्ष बाद लक्ष्मण द्वारा देय कुल चक्रवृद्धि ब्याज ज्ञात कीजिए।

(1) ₹19,143

(2) ₹13,419

(3) ₹14,139

(4) ₹11,349 ✔

Q.100 Find the HCF of 128, 256 and 448.

128, 256 और 448 का HCF ज्ञात कीजिए।

(1) 64 ✔

(2) 96

(3) 32

(4) 128

Q.101 P and Q together can completely fill a tank with water in 24 hours. If P alone can completely fill the tank with water in 60 hours, then in how many hours will Q alone fill 3/4 part of the same tank with water?

P और Q मिलकर एक टंकी को 24 घंटे में पानी से पूर्णतः भर सकते हैं। यदि P अकेले, टंकी को 60 घंटे में पानी से पूर्णतः भर सकता है, तो Q अकेले उसी टंकी का 3/4 भाग कितने घंटों में पानी से भरेगा?

(1) 60

(2) 30 ✔

(3) 31

(4) 61

Q.102 A person goes from place A to B at a speed of 4 km/h and returns from place B to A at a speed of 5 km/h using the same route. What is his average speed (in km/h) for the whole journey?

एक व्यक्तिस्थान A से B तक 4 km/h की चाल से जाता है और उसी मार्ग का उपयोग करते हुए स्थान B से A तक 5 km/h की चाल से लौट आता है। पूरी यात्रा में उसकी औसत चाल (km/h में) कितनी है?

(1) 11 4/9

(2) 13 4/9

(3) 4 4/9 ✔

(4) 2 4/9

Q.103 A and B start walking towards each other at the same time from points X and Y, respectively. They meet at some point on the way. After meeting, A takes 99.9 hours to reach point Y, and B takes p hours to reach point X. If the speed of B is 50% more than the speed of A, then find the value of p.

A और B क्रमशः बिंदु X और Y से एक ही समय पर एक-दूसरे की ओर चलना शुरू करते हैं। रास्ते में वे किसी बिंदु पर मिलते हैं। मिलने के बाद, A को बिंदु Y तक पहुंचने में 99.9 घंटे लगते हैं, और B को बिंदु X तक पहुंचने में p घंटे लगते हैं। यदि B की चाल, A की चाल से 50% अधिक है, तो p का मान ज्ञात कीजिए।

(1) 64.2

(2) 66.6

(3) 44.4 ✔

(4) 43.8

Q.104 P and Q together can completely fill a tank with water in 24 hours. If P alone can completely fill the tank with water in 48 hours, then in how many hours will Q alone fill 3/4 part of the same tank with water?

P और Q मिलकर एक टंकी को 24 घंटे में पानी से पूर्णतः भर सकते हैं। यदि P अकेले टंकी को 48 घंटे में 3/4 पानी से पूर्णतः भर सकता है, तो Q अकेले उसी टंकी काभाग कितने घंटों में पानी से भरेगा?

(1) 73

(2) 37

(3) **36** ✔

(4) 72

Q.105 The present ages of Rohit and Rahul are in the ratio of 5 : 4. 4 years from now, their ages will be in the ratio of 6 : 5. Find the present age (in years) of Rohit.

रोहित और राहुल की वर्तमान आयु 5 : 4 के अनुपात में है। अब से 4 वर्ष बाद, उनकी आयु 6 : 5 के अनुपात में होगी। रोहित की वर्तमान आयु (वर्षों में) ज्ञात कीजिए।

(1) 16

(2) 24

(3) 22

(4) **20** ✔

Q.106 Two pipes A and B can fill a tank in 24 hours and 40 hours, respectively. If both the pipes are opened together, find the time (in hours) taken to fill the tank.

दो पाइप A और B एक टंकी को क्रमशः 24 घंटे और 40 घंटे में भर सकते हैं। यदि दोनों पाइपों को एक साथ खोल दिया जाए, तो टंकी को भरने में लगने वाला समय (घंटे में) ज्ञात कीजिए।

(1) 18

(2) **15** ✔

(3) 17

(4) 16

Q.107 The ratio of the monthly incomes of Ram and Shyam is 8 : 7 and the ratio of their monthly expenditures is 5 : 4. If they save ₹1,500 and ₹2,100, respectively, find the monthly income of Shyam.

राम और श्याम की मासिक आय का अनुपात 8 : 7 है और मासिक व्यय का अनुपात 5 : 4 है। यदि वे क्रमशः ₹1,500 और ₹2,100 बचाते हैं, तो श्याम की मासिक आय ज्ञात कीजिए।

(1) ₹8,000

(2) ₹13,500

(3) **₹10,500** ✔

(4) ₹12,000

Q.108 Two pipes A and B can fill a tank in 22 hours and 99 hours, respectively. If both the pipes are opened together, find the time (in hours) taken to fill the tank.

दो पाइप A और B एक टंकी को क्रमशः 22 घंटे और 99 घंटे में भर सकते हैं। यदि दोनों पाइप एक साथ खोले जाते हैं, तो टंकी को भरने में लगने वाला समय (घंटे में) ज्ञात कीजिए।

(1) 19

(2) **18** ✔

(3) 21

(4) 20

QuickSarkari.com | WhatsApp Channel | Telegram: t.me/quick_sarkari

Q.109 A person goes from place A to B at a speed of 4 km/h and returns from place B to A at a speed of 13 km/h using the same route. What is his average speed (in km/h) for the whole journey?

एक व्यक्तिस्थान A से B तक 4 km/h की चाल से जाता है और समान मार्ग का उपयोग करते हुए स्थान B से A तक 13 km/h की चाल से लौट आता है। पूरी यात्रा में उसकी औसत चाल (km/h में) कितनी है?

(1) 5 2/17

(2) 1 2/17

(3) **6 2/17** ✔

(4) 7 2/17

Q.110 Find the single discount equivalent to two successive discounts of 6% and 4%.

6% और 4% की दो क्रमागत छूटों के समतुल्य एकल छूट ज्ञात कीजिए।

(1) 9.024%

(2) 97.6%

(3) **9.76%** ✔

(4) 90.24%

Q.111 Two numbers are in the ratio of 3 : 7. When 8 is added to each of them, their ratio becomes 5 : 9. Find the two numbers.

दो संख्याएँ 3 : 7 के अनुपात में हैं। जब उनमें से प्रत्येक में 8 जोड़ा जाता है तो उनका अनुपात 5 : 9 हो जाता है। दोनों संख्याएँ ज्ञात कीजिए।

(1) **12, 28** ✔

(2) 15, 35

(3) 9, 21

(4) 6, 14

Q.112 One side of a rectangular field is 8 cm and one of its diagonals is 17 cm. Find the area of this field.

एक आयताकार मैदान की एक भुजा 8 cm है और इसका एक विकर्ण 17 cm है। इस मैदान का क्षेत्रफल ज्ञात कीजिए।

(1) 110 cm^2

(2) **120 cm^2** ✔

(3) 100 cm^2

(4) 130 cm^2

Q.113 When the selling price of a bed becomes 7 times its initial selling price, the profit becomes 8 times the initial profit. Find the initial profit percentage (in %).

एक बेड का विक्रय मूल्य, उसके प्रारंभिक विक्रय मूल्य का 7 गुना हो जाने पर लाभ, प्रारंभिक लाभ का 8 गुना हो जाता है। प्रारंभिक लाभ प्रतिशत (% में) ज्ञात कीजिए।

(1) **600** ✔

(2) 14.28

(3) 87.5

(4) 114.28

QuickSarkari.com | WhatsApp Channel | Telegram: t.me/quick_sarkari

Q.114 An article is sold for ₹63,349 at a profit of 30%. If the profit is 40%, what will be the selling price (in ₹) of the article?

एक वस्तु को 30% लाभ पर ₹63,349 में बेचा जाता है। यदि लाभ 40% है, तो वस्तु का विक्रय मूल्य (₹ में) कितना होगा?

(1) 68,222 ✔

(2) 48,730

(3) 63,359

(4) 62,833

Q.115 Two taxis leave a taxi stand in the same direction at a speed of 54 km/h, with an interval of 49 minutes between their departures. A person riding a bike from the opposite direction meets the two taxis at an interval of 36 minutes. What is the speed (in km/h) of the person on the bike?

एक टैक्सी स्टैंड से दो टैक्सियां 54 km/h की चाल से एक ही दिशा में चलती हैं, उनके प्रस्थानों के बीच 49 मिनट का अंतराल है। विपरीत दिशा से बाइक चला रहा एक व्यक्ति, दोनों टैक्सियों से 36 मिनट के अंतराल पर मिलता है। बाइक पर सवार व्यक्ति की चाल (km/h में) कितनी है?

(1) 21.1

(2) 25.6

(3) 19.5 ✔

(4) 17.5

Q.116 P, Q and R invested sums of money in a business in the ratio of 1/3 : 1/5 : 1/6 . After 7 months from the start, P tripled his investment. After 6 months from the start, Q doubled his investment. After 8 months from the start, R halved his investment. If the total profit at the end of the year was ₹82,450, find Q's share in the profit.

(Round off your answer to the nearest integer)

P, Q और R ने एक व्यवसाय में 1/3 : 1/5 : 1/6 के अनुपात में धनराशि निवेश की। शुरुआत से 7 माह बाद, P ने अपने निवेश को तिगुना कर दिया। शुरुआत से 6 माह बाद, Q ने अपने निवेश को दोगुना कर दिया। शुरुआत से 8 माह बाद, R ने अपने निवेश को आधा कर दिया। यदि वर्ष के अंत में कुल लाभ ₹82,450 प्राप्त हुआ, तो लाभ में Q का हिस्सा ज्ञात कीजिए।

(अपने उत्तर को निकटतम पूर्णांक तक पूर्णांकित कीजिए)

(1) ₹22,950

(2) ₹21,580

(3) ₹23,557 ✔

(4) ₹23,685

Q.117 The dome of a building is in the shape of a hemisphere. Its whitewashing from inside was done at a cost of ₹83.16. If the cost of whitewashing is ₹3/m2, find the volume of air inside the dome, correct to two decimal places. (Use π = 22/7)

एक इमारत का गुंबद अर्धगोले के आकार का है। अंदर से इसकी सफेदी ₹83.16 की लागत पर की गई। यदि सफेदी की लागत ₹3/m2 है, तो गुंबद के अंदर वायु का आयतन दशमलव के दो स्थानों तक ज्ञात कीजिए। (π = 22/7 का उपयोग कीजिए)

(1) 14.90 m^3

(2) 14.09 m^3

(3) 19.04 m^3

(4) 19.40 m^3 ✔

Q.118 If the selling price of a bed is 6 times the initial selling price, then the profit is 7 times the initial profit. Find the initial profit percentage (in %).

यदि एक बेड का विक्रय मूल्य, प्रारंभिक विक्रय मूल्य का 6 गुना है, तो लाभ प्रारंभिक लाभ का 7 गुना है।
प्रारंभिक लाभ प्रतिशत (% में) ज्ञात कीजिए।

(1) 500 ✔
(2) 85
(3) 16.67
(4) 116.67

Q.119 A glass tumbler is made by removing one-third of the height of a cone from the vertex. If the original cone has a base with a radius of 3 cm and vertical height of 6 cm, then the volume of water the glass can hold is:64

शीर्ष से शंकु की ऊँचाई का एक-तिहाई भाग हटाकर एक काँच का गिलास बनाया जाता है।
यदि मूल शंकु के आधार की त्रिज्या 3 cm और ऊर्ध्वाधर ऊँचाई 6 cm है, तो गिलास में समा सकने वाले पानी का आयतन है:64

(1) 52π/3 cc ✔
(2) 10π cc
(3) 5π cc
(4) 50π/3 cc

Q.120 The volume of a conical vessel is fixed. If its height and radius are interchanged, the volume of the cone becomes double. What was the initial ratio of the height of the cone to the diameter of its base?

एक शंक्वाकार बर्तन का आयतन निश्चित है। यदि इसकी ऊँचाई और त्रिज्या को आपस में बदल दिया जाए, तो शंकु का आयतन दोगुना हो जाता है।
प्रारंभ में शंकु की ऊँचाई और आधार के व्यास का अनुपात क्या था?

(1) 3:2
(2) 2:1
(3) 1:2
(4) 1:1 ✔

English Language and Comprehension

Q.121 Select the most appropriate option to fill in the blank.
Shaina's baby was asleep when _____ news came.

(1) a
(2) No article
(3) an
(4) the ✔

Q.122 Select the most appropriate option to fill in the blank.
To our relief, _____ Honourable Chief Minister arrived at the venue of the event on time.

(1) No article
(2) an
(3) the ✔
(4) a

Q.123 Select the most appropriate option to fill in the blank.
Wow! Look at ____ morning sky, Shikha!

(1) a
(2) an
(3) the ✔
(4) No article

Q.124 Select the most appropriate adjective to fill in the blank.
Dr.Vishnu provided _____ support to his students who were struggling with their academics.

(1) decent
(2) deep
(3) easy
(4) dedicated ✔

Q.125 Select the most appropriate adjective to fill in the blank.
Hari packed _____ snacks for the long trip, ensuring we wouldn't go hungry.

(1) big
(2) clean
(3) ample ✔
(4) cheap

Q.126 Select the most appropriate preposition to fill in the blank.
Sarala is fond _____ chocolates.

(1) by
(2) of ✔
(3) with
(4) at

Q.127 Select the most appropriate option to fill in the blank.
Although her argument was well-structured and prepared, it failed to address certain key factors and was therefore _____ unconvincing.

(1) somewhat
(2) vaguely
(3) altogether ✔
(4) all together

Q.128 Select the most appropriate option to fill in the blank.
Growing up in ____ west of Delhi, Mona already stood out among her French friends.

(1) the ✔
(2) No article
(3) a
(4) an

QuickSarkari.com | WhatsApp Channel | Telegram: t.me/quick_sarkari

Q.129 Select the most appropriate option to fill in the blank.
She usually _____ her homework before dinner.

(1) done
(2) do
(3) didn't
(4) **does ✔**

Q.130 Select the most appropriate option to fill in the blank.
The author ____ a compelling argument, supported by extensive research.

(1) **presented ✔**
(2) has present
(3) is being presented
(4) has been presented

Q.131

Read the passage and answer the questions that follow.
In the vast realm of quantum mechanics, the concept of entanglement has intrigued physicists for decades. Entanglement occurs when two or more particles become correlated in such a way that the state of one particle instantly influences the state of the other, regardless of the distance between them. This phenomenon challenges our classical understanding of physics, as it suggests a form of interconnectedness that defies traditional notions of space and time. Recent experiments have delved into the intricacies of entanglement, revealing its potential applications in quantum computing and communication. Scientists have harnessed the delicate dance of entangled particles to create qubits, the fundamental units of quantum information. Quantum entanglement not only promises revolutionary advancements in technology but also raises profound questions about the nature of reality itself.

What is entanglement in quantum mechanics?

(1) Magnetic resonance
(2) Particle collision
(3) Wave-particle duality
(4) **Correlation of particle states ✔**

QuickSarkari.com | WhatsApp Channel | Telegram: t.me/quick_sarkari

Q.132

Read the passage and answer the questions that follow.
In the vast realm of quantum mechanics, the concept of entanglement has intrigued physicists for decades. Entanglement occurs when two or more particles become correlated in such a way that the state of one particle instantly influences the state of the other, regardless of the distance between them. This phenomenon challenges our classical understanding of physics, as it suggests a form of interconnectedness that defies traditional notions of space and time. Recent experiments have delved into the intricacies of entanglement, revealing its potential applications in quantum computing and communication. Scientists have harnessed the delicate dance of entangled particles to create qubits, the fundamental units of quantum information. Quantum entanglement not only promises revolutionary advancements in technology but also raises profound questions about the nature of reality itself.

What is the significance of entanglement in quantum computing?

(1) Classical information processing

(2) Creation of qubits ✔

(3) Faster data transmission

(4) Enhanced energy storage

Q.133

Read the passage and answer the questions that follow.
In the vast realm of quantum mechanics, the concept of entanglement has intrigued physicists for decades. Entanglement occurs when two or more particles become correlated in such a way that the state of one particle instantly influences the state of the other, regardless of the distance between them. This phenomenon challenges our classical understanding of physics, as it suggests a form of interconnectedness that defies traditional notions of space and time. Recent experiments have delved into the intricacies of entanglement, revealing its potential applications in quantum computing and communication. Scientists have harnessed the delicate dance of entangled particles to create qubits, the fundamental units of quantum information. Quantum entanglement not only promises revolutionary advancements in technology but also raises profound questions about the nature of reality itself.

Which of the following notions are challenged by the concept of entanglement?

(1) Newton's laws

(2) Einstein's theory of relativity

(3) Traditional notions of space and time ✔

(4) Wave-particle duality

Q.134

Read the passage and answer the questions that follow.
In the vast realm of quantum mechanics, the concept of entanglement has intrigued physicists for decades. Entanglement occurs when two or more particles become correlated in such a way that the state of one particle instantly influences the state of the other, regardless of the distance between them. This phenomenon challenges our classical understanding of physics, as it suggests a form of interconnectedness that defies traditional notions of space and time. Recent experiments have delved into the intricacies of entanglement, revealing its potential applications in quantum computing and communication. Scientists have harnessed the delicate dance of entangled particles to create qubits, the fundamental units of quantum information. Quantum entanglement not only promises revolutionary advancements in technology but also raises profound questions about the nature of reality itself.

Select the most appropriate synonym of the given word.
Entanglement

(1) Crossword
(2) Dissociation
(3) Enmeshment ✔
(4) Confused

Q.135

Read the passage and answer the questions that follow.
In the vast realm of quantum mechanics, the concept of entanglement has intrigued physicists for decades. Entanglement occurs when two or more particles become correlated in such a way that the state of one particle instantly influences the state of the other, regardless of the distance between them. This phenomenon challenges our classical understanding of physics, as it suggests a form of interconnectedness that defies traditional notions of space and time. Recent experiments have delved into the intricacies of entanglement, revealing its potential applications in quantum computing and communication. Scientists have harnessed the delicate dance of entangled particles to create qubits, the fundamental units of quantum information. Quantum entanglement not only promises revolutionary advancements in technology but also raises profound questions about the nature of reality itself.

What potential advancements does quantum entanglement promise?

(1) Faster internet speeds
(2) Advancements in technology and quantum computing ✔
(3) Greater energy efficiency
(4) Improved classical computing

QuickSarkari.com | WhatsApp Channel | Telegram: t.me/quick_sarkari

Q.136

Read the given passage and answer the questions that follow.
In recent years, urban gardening has emerged as a powerful movement in cities around the world. As space becomes increasingly limited in densely populated areas, citizens have begun transforming rooftops, balconies and even abandoned lots into thriving green spaces. This trend not only brings aesthetic value to the urban landscape but also addresses critical issues such as food security and mental well-being.
Many urban dwellers grow their own herbs, vegetables and fruits, reducing their dependence on commercial supply chains. This not only ensures fresher produce but also promotes sustainable living. In addition, participating in gardening activities has been linked to reduced stress levels, improved mood and increased physical activity. Community gardens, in particular, have become hubs for social interaction, fostering a sense of unity and shared responsibility among neighbours.
However, the movement is not without its challenges. Limited access to sunlight, water supply and suitable soil can hinder progress. Moreover, not everyone has the knowledge or resources to maintain a successful garden. Despite these obstacles, the benefits of urban gardening have encouraged many local governments and organisations to offer support through workshops, subsidies and awareness campaigns.
As cities continue to grow and climate concerns rise, urban gardening offers a hopeful and practical

Select the most appropriate title for the given passage.

(1) Urban Gardening: A Modern Solution ✔

(2) Gardening Techniques for Experts

(3) The Art of Traditional Farming

(4) The Downside of Urban Growth

QuickSarkari.com | WhatsApp Channel | Telegram: t.me/quick_sarkari

Q.137

Read the given passage and answer the questions that follow.

In recent years, urban gardening has emerged as a powerful movement in cities around the world. As space becomes increasingly limited in densely populated areas, citizens have begun transforming rooftops, balconies and even abandoned lots into thriving green spaces. This trend not only brings aesthetic value to the urban landscape but also addresses critical issues such as food security and mental well-being.

Many urban dwellers grow their own herbs, vegetables and fruits, reducing their dependence on commercial supply chains. This not only ensures fresher produce but also promotes sustainable living. In addition, participating in gardening activities has been linked to reduced stress levels, improved mood and increased physical activity. Community gardens, in particular, have become hubs for social interaction, fostering a sense of unity and shared responsibility among neighbours.

However, the movement is not without its challenges. Limited access to sunlight, water supply and suitable soil can hinder progress. Moreover, not everyone has the knowledge or resources to maintain a successful garden. Despite these obstacles, the benefits of urban gardening have encouraged many local governments and organisations to offer support through workshops, subsidies and awareness campaigns.

As cities continue to grow and climate concerns rise, urban gardening offers a hopeful and practical

What is the tone of the passage?

(1) Indifferent

(2) Humorous

(3) Critical

(4) **Optimistic** ✔

QuickSarkari.com | WhatsApp Channel | Telegram: t.me/quick_sarkari

Q.138

Read the given passage and answer the questions that follow.
In recent years, urban gardening has emerged as a powerful movement in cities around the world. As space becomes increasingly limited in densely populated areas, citizens have begun transforming rooftops, balconies and even abandoned lots into thriving green spaces. This trend not only brings aesthetic value to the urban landscape but also addresses critical issues such as food security and mental well-being.
Many urban dwellers grow their own herbs, vegetables and fruits, reducing their dependence on commercial supply chains. This not only ensures fresher produce but also promotes sustainable living. In addition, participating in gardening activities has been linked to reduced stress levels, improved mood and increased physical activity. Community gardens, in particular, have become hubs for social interaction, fostering a sense of unity and shared responsibility among neighbours.
However, the movement is not without its challenges. Limited access to sunlight, water supply and suitable soil can hinder progress. Moreover, not everyone has the knowledge or resources to maintain a successful garden. Despite these obstacles, the benefits of urban gardening have encouraged many local governments and organisations to offer support through workshops, subsidies and awareness campaigns.
As cities continue to grow and climate concerns rise, urban gardening offers a hopeful and practical

According to the passage, what are the two main benefits of urban gardening?

(1) Fresher produce and reduced stress ✔

(2) Reduced rent and increased wages

(3) Cheaper electricity and faster transport

(4) Better education and lower taxes

QuickSarkari.com | WhatsApp Channel | Telegram: t.me/quick_sarkari

Q.139

Read the given passage and answer the questions that follow.

In recent years, urban gardening has emerged as a powerful movement in cities around the world. As space becomes increasingly limited in densely populated areas, citizens have begun transforming rooftops, balconies and even abandoned lots into thriving green spaces. This trend not only brings aesthetic value to the urban landscape but also addresses critical issues such as food security and mental well-being.

Many urban dwellers grow their own herbs, vegetables and fruits, reducing their dependence on commercial supply chains. This not only ensures fresher produce but also promotes sustainable living. In addition, participating in gardening activities has been linked to reduced stress levels, improved mood and increased physical activity. Community gardens, in particular, have become hubs for social interaction, fostering a sense of unity and shared responsibility among neighbours.

However, the movement is not without its challenges. Limited access to sunlight, water supply and suitable soil can hinder progress. Moreover, not everyone has the knowledge or resources to maintain a successful garden. Despite these obstacles, the benefits of urban gardening have encouraged many local governments and organisations to offer support through workshops, subsidies and awareness campaigns.

As cities continue to grow and climate concerns rise, urban gardening offers a hopeful and practical

What is a challenge mentioned in the passage that urban gardeners often face?

(1) Government restrictions on plant types

(2) Lack of sunlight and proper soil ✓

(3) Invasion by wild animals

(4) Overproduction of crops

Quick Sarkari

Q.140

Read the given passage and answer the questions that follow.
In recent years, urban gardening has emerged as a powerful movement in cities around the world. As space becomes increasingly limited in densely populated areas, citizens have begun transforming rooftops, balconies and even abandoned lots into thriving green spaces. This trend not only brings aesthetic value to the urban landscape but also addresses critical issues such as food security and mental well-being.
Many urban dwellers grow their own herbs, vegetables and fruits, reducing their dependence on commercial supply chains. This not only ensures fresher produce but also promotes sustainable living. In addition, participating in gardening activities has been linked to reduced stress levels, improved mood and increased physical activity. Community gardens, in particular, have become hubs for social interaction, fostering a sense of unity and shared responsibility among neighbours.
However, the movement is not without its challenges. Limited access to sunlight, water supply and suitable soil can hinder progress. Moreover, not everyone has the knowledge or resources to maintain a successful garden. Despite these obstacles, the benefits of urban gardening have encouraged many local governments and organisations to offer support through workshops, subsidies and awareness campaigns.
As cities continue to grow and climate concerns rise, urban gardening offers a hopeful and practical

Select the most appropriate ANTONYM of the word 'thriving' as used in the given passage.

(1) Prosperous
(2) Growing
(3) Flourishing
(4) Withering ✔

Q.141 Select the most appropriate homonym to fill in the blank.
As the team members gathered at the base of the mountain, they gave their unanimous _____ to attempt the challenging _____ ahead.

(1) assent; assent
(2) ascent; ascent
(3) assent; ascent ✔
(4) ascent; assent

Q.142 Select the most appropriate meaning of the given idiom.
When hell freezes over

(1) Something that never happens ✔
(2) A place which becomes frozen unexpectedly
(3) Once when everything freezes
(4) Someone who never comes

Q.143 Sentences of a paragraph are given below in jumbled order. Arrange the sentences in the correct order to form a meaningful and coherent paragraph.
A: On the other hand, much of the canvassing, of which the consumer is the object, does not convey information but endeavours merely to draw the public attention to certain products.
B: The advertiser's assumption is that by looking at such pictures, the consumer would be influenced to buy his products.
C: Advertising is also advantageous to the consumers, if it increases the sale of goods, industry prospers, and prices may be reduced.
D: There is no obvious connection, for example, between a picture of a smiling girl and a certain brand sweet.
E: But most people like looking at the pictures of pretty girls.

(1) BDECA
(2) CADEB ✔
(3) EBADC
(4) DCEBA

Q.144 Select the most appropriate ANTONYM of the highlighted word in the given sentence. The lawyer worked hard to ensure the tenability of his case in court.

(1) Pervious
(2) Unprepared
(3) Indefensible ✔
(4) Tactical

Q.145 Sentences of a paragraph are given below in jumbled order. Arrange the sentences in the correct order to form a meaningful and coherent paragraph.
A) Reading books enhances knowledge and broadens perspectives.
B) It also improves vocabulary and communication skills.
C) Developing a habit of reading daily has several benefits.
D) Additionally, it fosters creativity and critical thinking.

(1) CBAD
(2) ACBD
(3) CABD ✔
(4) BCAD

Q.146 Select the most appropriate option that can be used as a one-word substitute for the underlined segment in the given paragraph.
'The Tiger' was attacked and looted by pirates near Somalia. Their ship was called ' The Dark Abyss'. Red Beard was its captain. After looting "The Tiger', Red Beard was making his way to safer ports. Fate did not seem to be in his favour. His ship encountered a violent sea storm and after being violently tossed and battered by massive waves,' The Dark Abyss' was wrecked.

(1) tsunami
(2) tempest ✔
(3) tornado
(4) lagoon

Q.147 Sentences of a paragraph are given below in jumbled order. Arrange the sentences in the correct order to form a meaningful and coherent paragraph.
A- While the Budget sets a lower nominal gross domestic product (GDP) growth target of 14%, we believe that the real GDP growth target of 9% factored in the Budget is on the optimistic side.
B- Additionally, there was an expectation that the government would restart the reform process.
C- The Budget has made an attempt to address all these issues, albeit through small steps.
D- The three key macroeconomic concerns before the Union Budget 2011-12 were high inflation, high current account deficit (CAD), and fiscal consolidation.
E- Despite the strong performance of the economy in 2010-11, the outlook for 2011-12 is clouded by stubborn and persistently high inflation, and rising external risks.

(1) DBCEA
(2) BDECA
(3) EDBCA ✔
(4) BDCEA

Q.148 Select the most appropriate idiom for the given group of words.
To have a problem that you cannot solve or get rid of easily3

(1) Beat a dead horse
(2) Having a monkey on your back ✔
(3) A penny for your thoughts
(4) Walk on eggshells

Q.149 Select the most appropriate synonym of the highlighted word in the given sentence. The rebel's insurrection was swiftly quelled by the government.

(1) Defamation
(2) Uprising ✔
(3) Termination
(4) Compliance

Q.150 Select the option that can be used as a one-word substitute for the given group of words.
The act of intentionally avoiding something, especially due to moral or social reasons

(1) Abjuration
(2) Eschewal ✔
(3) Renunciation
(4) Ostracism

Q.151 Select the most appropriate option to fill in the blanks.
She used a hearing ____ to improve her hearing, and her personal ___ assisted her with daily activities to ensure she lived comfortably.

(1) aid; aid
(2) aide; aid
(3) aide; aide
(4) aid; aide ✔

QuickSarkari.com | WhatsApp Channel | Telegram: t.me/quick_sarkari

Q.152 Sentences of a paragraph are given below in jumbled order. Arrange the sentences in the correct order to form a meaningful and coherent paragraph.
A- It unfolds in two sections: Climate change: how to make sense of it all.
B- And natural resources how to share and care, however, they are introduced to students not as a paragraph to memorise but as an activity to do.
C- Environment Education unit of Centre for Science and Environment has always been working towards providing easy to understand reading material.
D- Their new publication on this subject is an attempt to lend teachers a helping hand.

(1) DBAC
(2) CDAB ✔
(3) ACBD
(4) BDAC

Q.153 Sentences of a paragraph are given below in jumbled order. Arrange the sentences in the correct order to form a meaningful and coherent paragraph.
A. In fact, their findings revealed that many mummies had heart diseases. The Horus Group found that on CT scans, almost 38% of the mummies had the primary pathological evidence of atherosclerosis—deposits of calcium lining their aortas and other major arteries.
B. They wanted to see if atherosclerosis, one of the leading causes of death in the world, is a disease of modernity, our high-stress, cholesterol-laden lifestyle or if it had been there all along.
C. The Horus Group, named after the Egyptian god of healing, is an international team of cardiologists, archaeologists and radiologists who have studied more than 200 mummies in Egypt, Peru, the Aleutian Islands and Italy with computer tomography (CT) scans and genetic analyses.
D. This was particularly striking because to be mummified, you had to be rich, powerful, a priest or a relative of the pharaoh, living a relatively lavish, sedentary lifestyle, and, according to hieroglyphic papyri, eating a lot of meat and suffering from cardiac symptoms.

(1) CBAD ✔
(2) CABD
(3) CDBA
(4) CADB

Q.154 Select the most appropriate idiom for the given group of words.
Be together always

(1) Like two peas in a pod ✔
(2) A dime a dozen
(3) A chip off the old block
(4) Keep your chin up

Q.155 Sentences of a paragraph are given below in jumbled order. Arrange the sentences in the correct order to form a meaningful and coherent paragraph.
A: We do not, then, limit our thinking to our own caste or religion but think about all our fellow citizens.
B: This feeling of an extensive group gives rise to a fellow feeling, a feeling of brotherhood amongst the citizens.
C: This feeling takes up beyond the bounds of family, caste, religion as well as region and helps us to develop a broad perspective that all of us together constitute an extensive group called 'the nation'.
D: National integration is the feeling among all the citizens of a country that they all are part of one nation.

(1) BDAC
(2) BACD
(3) CBAD
(4) **DCBA ✔**

Q.156 Select the most appropriate one-word substitute of the highlighted segment in the given sentence.
To analyse Prose, understanding a writer's style is crucial. A key characteristic to identify is the act of talking at length in a pompous or boastful way. Recognising instances of this can reveal a character's arrogance or a narrator's critical perspective on a subject.

(1) **grandiloquence ✔**
(2) verbosity
(3) circumlocution
(4) rhetoric

Q.157 Select the most appropriate option that can substitute the underlined words in the given sentence.
The restaurant owner tried to transform his poorly trained staff and outdated kitchen into a fine-dining establishment, but critics soon pointed out that it seemed impossible to turn into something attractive.

(1) **you can't make a silk purse out of a sow's ear ✔**
(2) a rolling stone gathers no moss
(3) the grass is always greener on the other side
(4) you should not put all your eggs in one basket

Q.158 Select the most appropriate ANTONYM of the given word.
Tyro

(1) Debutant
(2) Learner
(3) **Expert ✔**
(4) Skipper

Q.159 Identify the INCORRECTLY spelt word in the given paragraph and select the option that rectifies it.
Ethan Hunt, Tom Cruise's most enduring role, was rarely much more than a name. That's the point of him; as the Mission: Impossible franchise's secret agent extraordinnaire, Hunt can pretend to be anyone, accomplish basically any physical task, and uncover conspiracies with aplomb. He's a cross between James Bond and a vaudeville performer. His charm is less about deep character development and more about the thrill of transformation—constantly shifting identities, outwitting villains, and pulling off impossible feats with a grin.

(1) vaudeville
(2) **extraordinaire ✔**
(3) grin
(4) aplomb

Q.160 Select the most appropriate synonym of the given word.
Malarkey

(1) Lie
(2) Remedy
(3) **Nonsense ✔**
(4) Malignity

Hindi Language and Comprehension

Q.161 निम्नलिखित वाक्यों में से अतिरिक्त वाक्य का चयन करें -

(1) हमें प्रौद्योगिकी का उपयोग संतुलित ढंग से करना चाहिए, ताकि यह हमारे संबंधों को कमजोर करने के बजाय उन्हें और अधिक सशक्त बना सके।
(2) सोशल मीडिया ने संवाद को तेज और सुलभ बना दिया है, किंतु इसके साथ ही यह भी देखा जा रहा है कि व्यक्ति अपने आसपास के वास्तविक संसार से दूर होता जा रहा है।
(3) आधुनिक युग में प्रौद्योगिकी ने हमारे जीवन को असीमित सुविधाएँ प्रदान की हैं, किंतु इसके प्रभाव से मानवीय संबंधों की संरचना भी बदल गई है।
(4) **कल्पना ज्ञान से अधिक महत्त्वपूर्ण है, क्योंकि ज्ञान की कोई सीमा होती है, जबकि कल्पना पूरे ब्रह्मांड को समेट सकती है। ✔**

Q.162 लोकोक्तिके सही अर्थ का चयन करें- 'दालभात में मूसलचन्द'

(1) बार-बार किसी एक ही काम को करना
(2) व्यर्थ का कार्य करना
(3) दाल को मूसल से तोड़ना
(4) **किसी के काम में बेकार दखल देना ✔**

Q.163 सार्थक शब्द के आधार पर रिक्त स्थान की पूर्ति कीजिए।
फूल कई ---------- के होते हैं ।

(1) सुंदर
(2) रूप
(3) **प्रकार ✔**
(4) आकर्षक

Q.164 सार्थक शब्द के आधार पर रिक्त स्थान की पूर्ति कीजिए।
—---------- के कारण ही मनुष्यों में अंतर स्पष्ट होता है।

(1) राजनीति
(2) भेद
(3) **चरित्र ✔**
(4) समाज

Q.165 दिए गए वाक्यांश के लिए एक शब्द होगा-- 'कुबेर का विमान'

(1) पुष्पकेतु
(2) पुष्पकर्ण
(3) विक्रांत
(4) **पुष्पक ✔**

Q.166 निम्नलिखित विकल्पों में से कौन-सा वाक्य पूर्ण रूप से शुद्ध है -

(1) माता-पिता का आदर करना चाहिए । ✔

(2) माता-पिता का आदर देना चाहिए ।

(3) माता-पिता का आदर रखना चाहिए ।

(4) माता-पिता का आदर लेना चाहिए ।

Q.167 दिए गए वाक्य का सही क्रम होगा-- 1.इसी कारण वह इतर 2.प्राणियों से भिन्न है 3.कल्पना करना मनुष्य 4.का स्वभाव है और

(1) 2,3,1,4

(2) 3,1,2,4

(3) 3,4,1,2 ✔

(4) 1,2,3,4

Q.168 लोकोक्तिके सही अर्थ का चयन करें- अँधा बगुला कीचड़ खाये

(1) परिश्रम का लाभ उठाना

(2) संसाधन की कमी से अयोग्य बनना ✔

(3) समय निकल जाने पर पछताना

(4) चारों ओर कठिनाई होना

Q.169 दिए गए वाक्यों में से तीन का संबंध एक ही संदर्भ से जुड़ा हुआ है, जबकि एक वाक्य अतिरिक्त है। इनमें से अतिरिक्त वाक्य का चयन करें

(1) यह दुनिया का सबसे बड़ा लिखित संविधान है और इसमें नागरिकों के अधिकार एवं कर्तव्य निर्धारित किए गए हैं।

(2) भारतीय संविधान को 26 नवंबर 1949 को अंगीकार किया गया था।

(3) यह संविधान 26 जनवरी 1950 को लागू हुआ, जिसे हम गणतंत्र दिवस के रूप में मनाते हैं।

(4) योग न केवल शारीरिक बल्कि मानसिक स्वास्थ्य के लिए भी लाभदायक होता है। ✔

Q.170 सर्वोचित शब्द से वाक्य का रिक्त स्थान पूर्ण करें— पहाड़ की/का ..... मुझे अनुकूल नहीं पड़ती/ता।

(1) मौसम

(2) ऋतु

(3) जलवायु ✔

(4) पर्यावरण

Q.171 सर्वोचित शब्द से वाक्य का रिक्त स्थान पूर्ण करें— उसने ..... द्वारा सिद्ध कर दिया कि नींद मस्तिष्क की थकान के कारण आती है।

(1) युक्ति

(2) विचार

(3) तर्क ✔

(4) बहस

Q.172 दिये गये वाक्य के किस भाग में त्रुटि है?

हम रोज समय पर भोजन करना चाहिए।

(1) हम रोज़ ✔

(2) करना चाहिए।

(3) भोजन

(4) समय पर

Q.173 दिए गए वाक्य क्रम सही नहीं हैं। उनके सही क्रम के चार विकल्प दिए गए हैं। उनमें से सही विकल्प चुनिए।
(A) समाज सुधारकों ने शिक्षा को
(B) बंगाल और महाराष्ट्र के अनेक
(C) बढ़ावा देकर लोगों को अंग्रेजों के
(D) षड्यंत्र से अवगत कराया

(1) B, A, C, D ✔
(2) C, D, A, B
(3) D, A, C, B
(4) B, C, D, A

Q.174 सर्वोचित शब्द से वाक्य का रिक्त स्थान पूर्ण करें— नौकरी उसी को मिलेगी जो दिन में आठ घंटे काम करने की ..... रखता हो।

(1) क्षमता ✔
(2) अर्हता
(3) चेतना
(4) योग्यता

Q.175 वाक्यांश के लिए सार्थक शब्द चुनें।
जो विज्ञान जानता है।

(1) विज्ञानवेत्ता
(2) वैज्ञानिक ✔
(3) विज्ञान
(4) विज्ञ

Q.176

दिए गए गद्यांश को पढ़कर नीचे लिखे प्रश्नों के उत्तर दीजिए ।
किसी देश का उत्थान या पतन इस बात पर निर्भर करता है कि उसके नागरिक किस स्तर के हैं और यह स्तर बहुत करके वहाँ की शिक्षा-पद्धति पर निर्भर रहता है। व्यक्ति के निर्माण और समाज के उत्थान में शिक्षा का अत्यधिक महत्त्वपूर्ण योगदान होता है। प्राचीन काल की भारतीय गरिमा ,ऋषियों द्वारा संचालित गुरुकुल पद्धति केकारण ही ऊँची उठ सकी थी। पिछले दिनों भी जिन देशों ने अपना भला-बुरा निर्माण किया है, उसमें शिक्षा को ही प्रधान साधन बनाया है। जर्मनी, इटली का नाजीवाद, रूस और चीन का साम्यवाद, जापान का उद्योगवाद यूगोस्लाविया, स्विटजरलैंड, क्यूबा आदि में विशेष निर्माण कार्य शिक्षा प्रणाली में क्रांतिकारी परिवर्तन लाने से ही संभव हुआ। व्यक्ति का बौद्धिक और चारित्रिक निर्माण बहुत सीमा तक उपलब्ध शिक्षा प्रणाली पर निर्भर करता है।
आज ऐसी शिक्षा की आवश्यकता है, जो पूरे समाज और देश में नैतिकता उत्पन्न कर सके। यह नैतिकता नैतिक शिक्षा के द्वारा ही उत्पन्न की जा सकती है।
वर्तमान विश्व के विकास के प्रमुख आधार विज्ञान और प्रौद्योगिकी है। वर्तमान विश्व में न केवल ज्ञान का विस्फोट, जनसंख्या का विस्फोट, गतिपूर्ण सामाजिक परिवर्तन आदि हो रहे हैं, अपितु हमारे परिवार तथा समाज का ढाँचा भी उसी गति से परिवर्तित हो रहा है। प्रचार, विचार-विमर्श तथा विचार-विनियम के नवीन प्रभावी साधन विकसित हो रहे हैं। इन सभी का हमारे नैतिक मूल्यों पर प्रभाव पड़ा है। आज आवश्यकता इस बात की है कि विज्ञान- आधारित विकास को जीवन-शक्ति ,हमारे नैतिक एवं आध्यात्मिक आधारों से प्राप्त हो।

उपर्युक्त गद्यांश के अनुसार किसी देश का उत्थान या पतन अप्रत्यक्ष रूप से किस बात पर निर्भर करता है-

(1) आध्यात्मिक विकास पर
(2) शिक्षा-पद्धति पर ✔
(3) सामाजिक असमानताओं पर
(4) जनसंख्या वृद्धि पर

Q.177

दिए गए गद्यांश को पढ़कर नीचे लिखे प्रश्नों के उत्तर दीजिए ।
किसी देश का उत्थान या पतन इस बात पर निर्भर करता है कि उसके नागरिक किस स्तर के हैं और यह स्तर बहुत करके वहाँ की शिक्षा-पद्धति पर निर्भर रहता है। व्यक्ति के निर्माण और समाज के उत्थान में शिक्षा का अत्यधिक महत्त्वपूर्ण योगदान होता है। प्राचीन काल की भारतीय गरिमा ,ऋषियों द्वारा संचालित गुरुकुल पद्धति केकारण ही ऊँची उठ सकी थी। पिछले दिनों भी जिन देशों ने अपना भला-बुरा निर्माण किया है, उसमें शिक्षा को ही प्रधान साधन बनाया है। जर्मनी, इटली का नाजीवाद, रूस और चीन का साम्यवाद, जापान का उद्योगवाद यूगोस्लाविया, स्विटजरलैंड, क्यूबा आदि में विशेष निर्माण कार्य शिक्षा प्रणाली में क्रांतिकारी परिवर्तन लाने से ही संभव हुआ। व्यक्ति का बौद्धिक और चारित्रिक निर्माण बहुत सीमा तक उपलब्ध शिक्षा प्रणाली पर निर्भर करता है।
आज ऐसी शिक्षा की आवश्यकता है, जो पूरे समाज और देश में नैतिकता उत्पन्न कर सके। यह नैतिकता नैतिक शिक्षा के द्वारा ही उत्पन्न की जा सकती है।
वर्तमान विश्व के विकास के प्रमुख आधार विज्ञान और प्रौद्योगिकी है। वर्तमान विश्व में न केवल ज्ञान का विस्फोट, जनसंख्या का विस्फोट, गतिपूर्ण सामाजिक परिवर्तन आदि हो रहे हैं, अपितु हमारे परिवार तथा समाज का ढाँचा भी उसी गति से परिवर्तित हो रहा है। प्रचार, विचार-विमर्श तथा विचार-विनियम के नवीन प्रभावी साधन विकसित हो रहे हैं। इन सभी का हमारे नैतिक मूल्यों पर प्रभाव पड़ा है। आज आवश्यकता इस बात की है कि विज्ञान- आधारित विकास को जीवन-शक्ति ,हमारे नैतिक एवं आध्यात्मिक आधारों से प्राप्त हो।

उपर्युक्त गद्यांश की विषय वस्तु है –

(1) विज्ञान और प्रौद्योगिकी
(2) **नैतिक-शिक्षा ✔**
(3) गुरुकुल शिक्षा-पद्धति
(4) सामाजिक परिवर्तन

Q.178

दिए गए गद्यांश को पढ़कर नीचे लिखे प्रश्नों के उत्तर दीजिए ।
किसी देश का उत्थान या पतन इस बात पर निर्भर करता है कि उसके नागरिक किस स्तर के हैं और यह स्तर बहुत करके वहाँ की शिक्षा-पद्धति पर निर्भर रहता है। व्यक्ति के निर्माण और समाज के उत्थान में शिक्षा का अत्यधिक महत्त्वपूर्ण योगदान होता है। प्राचीन काल की भारतीय गरिमा ,ऋषियों द्वारा संचालित गुरुकुल पद्धति केकारण ही ऊँची उठ सकी थी। पिछले दिनों भी जिन देशों ने अपना भला-बुरा निर्माण किया है, उसमें शिक्षा को ही प्रधान साधन बनाया है। जर्मनी, इटली का नाजीवाद, रूस और चीन का साम्यवाद, जापान का उद्योगवाद यूगोस्लाविया, स्विटजरलैंड, क्यूबा आदि में विशेष निर्माण कार्य शिक्षा प्रणाली में क्रांतिकारी परिवर्तन लाने से ही संभव हुआ। व्यक्ति का बौद्धिक और चारित्रिक निर्माण बहुत सीमा तक उपलब्ध शिक्षा प्रणाली पर निर्भर करता है।
आज ऐसी शिक्षा की आवश्यकता है, जो पूरे समाज और देश में नैतिकता उत्पन्न कर सके। यह नैतिकता नैतिक शिक्षा के द्वारा ही उत्पन्न की जा सकती है।
वर्तमान विश्व के विकास के प्रमुख आधार विज्ञान और प्रौद्योगिकी है। वर्तमान विश्व में न केवल ज्ञान का विस्फोट, जनसंख्या का विस्फोट, गतिपूर्ण सामाजिक परिवर्तन आदि हो रहे हैं, अपितु हमारे परिवार तथा समाज का ढाँचा भी उसी गति से परिवर्तित हो रहा है। प्रचार, विचार-विमर्श तथा विचार-विनियम के नवीन प्रभावी साधन विकसित हो रहे हैं। इन सभी का हमारे नैतिक मूल्यों पर प्रभाव पड़ा है। आज आवश्यकता इस बात की है कि विज्ञान- आधारित विकास को जीवन-शक्ति ,हमारे नैतिक एवं आध्यात्मिक आधारों से प्राप्त हो।

वर्तमान विश्व में नैतिक मूल्यों को प्रभावित करने वाला कारण नहीं है –

(1) जनसंख्या का विस्फोट
(2) **गुरुकुल शिक्षा-पद्धति ✔**
(3) गतिपूर्ण सामाजिक परिवर्तन
(4) ज्ञान का विस्फोट

Q.179

दिए गए गद्यांश को पढ़कर नीचे लिखे प्रश्नों के उत्तर दीजिए ।
किसी देश का उत्थान या पतन इस बात पर निर्भर करता है कि उसके नागरिक किस स्तर के हैं और यह स्तर बहुत करके वहाँ की शिक्षा-पद्धति पर निर्भर रहता है। व्यक्ति के निर्माण और समाज के उत्थान में शिक्षा का अत्यधिक महत्त्वपूर्ण योगदान होता है। प्राचीन काल की भारतीय गरिमा ,ऋषियों द्वारा संचालित गुरुकुल पद्धति केकारण ही ऊँची उठ सकी थी। पिछले दिनों भी जिन देशों ने अपना भला-बुरा निर्माण किया है, उसमें शिक्षा को ही प्रधान साधन बनाया है। जर्मनी, इटली का नाजीवाद, रूस और चीन का साम्यवाद, जापान का उद्योगवाद यूगोस्लाविया, स्विटजरलैंड, क्यूबा आदि में विशेष निर्माण कार्य शिक्षा प्रणाली में क्रांतिकारी परिवर्तन लाने से ही संभव हुआ। व्यक्ति का बौद्धिक और चारित्रिक निर्माण बहुत सीमा तक उपलब्ध शिक्षा प्रणाली पर निर्भर करता है।
आज ऐसी शिक्षा की आवश्यकता है, जो पूरे समाज और देश में नैतिकता उत्पन्न कर सके। यह नैतिकता नैतिक शिक्षा के द्वारा ही उत्पन्न की जा सकती है।
वर्तमान विश्व के विकास के प्रमुख आधार विज्ञान और प्रौद्योगिकी है। वर्तमान विश्व में न केवल ज्ञान का विस्फोट, जनसंख्या का विस्फोट, गतिपूर्ण सामाजिक परिवर्तन आदि हो रहे हैं, अपितु हमारे परिवार तथा समाज का ढाँचा भी उसी गति से परिवर्तित हो रहा है। प्रचार, विचार-विमर्श तथा विचार-विनियम के नवीन प्रभावी साधन विकसित हो रहे हैं। इन सभी का हमारे नैतिक मूल्यों पर प्रभाव पड़ा है। आज आवश्यकता इस बात की है कि विज्ञान- आधारित विकास को जीवन-शक्ति ,हमारे नैतिक एवं आध्यात्मिक आधारों से प्राप्त हो।

'साम्यवाद' से अभिप्राय है –

(1) ऐसी आर्थिक प्रणाली जिसमें धनिक वर्ग उत्पादन साधनों पर अधिकार कर श्रमिकों का शोषण करता है।
(2) **वर्गहीन समुदाय के लिए सामाजिक सुव्यवस्था का सिद्धांत। ✔**
(3) वह शासन व्यवस्था जिसमें राज्य की भूमि बड़े-बड़े जमींदारों के अधिकार में रहती है ।
(4) एक राष्ट्र का अन्य राष्ट्र को अपने अधीन कर अपना हित पूरा करने का सिद्धांत।

Q.180

दिए गए गद्यांश को पढ़कर नीचे लिखे प्रश्नों के उत्तर दीजिए ।
किसी देश का उत्थान या पतन इस बात पर निर्भर करता है कि उसके नागरिक किस स्तर के हैं और यह स्तर बहुत करके वहाँ की शिक्षा-पद्धति पर निर्भर रहता है। व्यक्ति के निर्माण और समाज के उत्थान में शिक्षा का अत्यधिक महत्त्वपूर्ण योगदान होता है। प्राचीन काल की भारतीय गरिमा ,ऋषियों द्वारा संचालित गुरुकुल पद्धति केकारण ही ऊँची उठ सकी थी। पिछले दिनों भी जिन देशों ने अपना भला-बुरा निर्माण किया है, उसमें शिक्षा को ही प्रधान साधन बनाया है। जर्मनी, इटली का नाजीवाद, रूस और चीन का साम्यवाद, जापान का उद्योगवाद यूगोस्लाविया, स्विटजरलैंड, क्यूबा आदि में विशेष निर्माण कार्य शिक्षा प्रणाली में क्रांतिकारी परिवर्तन लाने से ही संभव हुआ। व्यक्ति का बौद्धिक और चारित्रिक निर्माण बहुत सीमा तक उपलब्ध शिक्षा प्रणाली पर निर्भर करता है।
आज ऐसी शिक्षा की आवश्यकता है, जो पूरे समाज और देश में नैतिकता उत्पन्न कर सके। यह नैतिकता नैतिक शिक्षा के द्वारा ही उत्पन्न की जा सकती है।
वर्तमान विश्व के विकास के प्रमुख आधार विज्ञान और प्रौद्योगिकी है। वर्तमान विश्व में न केवल ज्ञान का विस्फोट, जनसंख्या का विस्फोट, गतिपूर्ण सामाजिक परिवर्तन आदि हो रहे हैं, अपितु हमारे परिवार तथा समाज का ढाँचा भी उसी गति से परिवर्तित हो रहा है। प्रचार, विचार-विमर्श तथा विचार-विनियम के नवीन प्रभावी साधन विकसित हो रहे हैं। इन सभी का हमारे नैतिक मूल्यों पर प्रभाव पड़ा है। आज आवश्यकता इस बात की है कि विज्ञान- आधारित विकास को जीवन-शक्ति ,हमारे नैतिक एवं आध्यात्मिक आधारों से प्राप्त हो।

'उत्थान' शब्द का तद्भव रूप होगा –

(1) उठ
(2) **उठान ✔**
(3) उगना
(4) उछाह

Q.181 निम्नलिखित में से कलापी का कौन सा अनेकार्थी शब्द नहीं है?

(1) **रात्रि ✔**
(2) वटवृक्ष
(3) मोर
(4) कोयल

Q.182 निम्नलिखित वाक्य में रेखांकित शब्द का विलोम चुनें बंगाल और महाराष्ट्र के विद्वानों ने भारतीय संस्कृति, परंपराओं और गौरव-शाली इतिहास को उजागर करने के लिए शोध किए।

(1) प्रतिष्ठा
(2) महिमा
(3) श्रेय
(4) **लाघव ✔**

Q.183 निम्नलिखित वाक्य को पूर्ण करने के लिए उचित परिमाणवाचक क्रिया-विशेषण का प्रयोग करें- अंग्रेजों द्वारा फैलाया गया 'सभ्यता मिशन' भारतीय समाज के लिए _____ हानिकारक सिद्ध हुआ।

(1) कदाचित
(2) सचमुच
(3) निःसंदेह
(4) **सर्वथा ✔**

Q.184 निम्नलिखित वाक्य के रेखांकित पद में वर्तनी संबंधी अशुद्धि है। दिए गए विकल्पों में से सही वर्तनी वाला शब्द चुनिए- बिहारी का वाग्वैदग्धय उनकी कविता की अन्यतम विशेषता है

(1) वाक्वैदग्य
(2) **वाग्वैदग्ध्य ✔**
(3) वागविगग्ध
(4) वागवेदग्ध्य

Q.185 दिए गए वाक्य में उचित प्रेरणार्थक क्रिया शब्द का चयन करके रिक्त स्थान की पूर्ति करें – कार्यालय के कर्मचारी ,बड़े अधिकारी से आवेदन स्वीकृत ---------- हैं।

(1) **करवाते ✔**
(2) करना
(3) करवाने
(4) करते

Q.186 दिए गए वाक्य के किस भाग में त्रुटि है?
इस वाक़य की व्याकरणिक अशुद्धियाँ देखो।

(1) **इस वाक़य की ✔**
(2) अशुद्धियाँ
(3) व्याकरणिक
(4) देखो

Q.187 निम्नलिखित वाक्य को पूर्ण करने के लिए उचित परिमाणवाचक क्रिया-विशेषण का प्रयोग करें- बंगाल में अंग्रेजों की बढ़ती सत्ता को लेकर लोगों में _____ असंतोष फैलने लगा।

(1) परस्पर
(2) **काफी ✔**
(3) शायद
(4) अवश्य

Q.188 निम्नलिखित वाक्य को पूर्ण करने के लिए उचित क्रिया शब्द का चयन करें- मराठों ने अंग्रेजों के बढ़ते प्रभाव का _____, लेकिन अंततः उन्हें संधि करने के लिए मजबूर होना पड़ा।

(1) विरोध किया ✔

(2) विद्रोह लिया

(3) समर्थन करते है

(4) हिंसा की

Q.189 संस्कृत साहित्य में वयवृद्ध मनीषियों द्वारा प्रतिपादित शाश्वत सत्य आज भी जीवन की गूढ़ समस्याओं के समाधान हेतु मार्गदर्शन प्रदान करते हैं।

दिए गए वाक्य के किस भाग में त्रुटि है?

(1) शाश्वत

(2) प्रतिपादित

(3) वयवृद्ध ✔

(4) मनीषियों

Q.190 निम्नलिखित में से 'सोलह' का तत्सम शब्द कौन-सा होगा-

(1) शोभन

(2) स्वर्ण

(3) षोडश ✔

(4) समर्पण

Q.191 निम्नलिखित वाक्य को 'करण कारक' द्वारा पूर्ण करें- यदि बंगाल के लोग इस मिशन ____ असहमत होते और विरोध करते, तो उन्हें असभ्य और कृतघ्न समझा जाता था।

(1) पर

(2) द्वारा

(3) से ✔

(4) में

Q.192 निम्नलिखित मुहावरे के अर्थ को बताएं - 'ऊँची दुकान फीका पकवान'

(1) मामूली आदमी

(2) अपर्याप्त

(3) अनमोल संयोग

(4) दिखावा ज्यादा लेकिन गुण कम होना ✔

Q.193 निम्नलिखित में से कौन-सा विकल्प तत्सम शब्द है?

(1) दधि ✔

(2) आँसू

(3) आग

(4) आज

Q.194 नीचे दिए गए वाक्य के किस भाग में त्रुटि है ?

'बच्चे को पौष्टिक अहार चाहिए।'

(1) पौष्टिक

(2) चाहिए

(3) अहार ✔

(4) बच्चे

Q.195 निम्नलिखित वाक्य में रेखांकित शब्द का विलोम चुनें महाराष्ट्र के नेताओं ने विदेशी वस्त्रों के बहिष्कार और स्वदेशी वस्तुओं को अपनाने के लिए अभियान चलाए।

(1) वर्जन
(2) निष्कासन
(3) आयोग
(4) **स्वीकृति ✔**

Q.196 निम्नलिखित वाक्य में रेखांकित शब्द का पर्यायवाची चुनें- महाराष्ट्र में राजनीतिक जागरूकता फैलाने के लिए सार्वजनिक व्याख्यानों और विचार-विमर्श की परंपरा विकसित की गई।

(1) **सजगता ✔**
(2) तीव्रता
(3) विनम्रता
(4) चंचलता

Q.197 आलस्य करना किसी भी लक्ष्य को प्राप्त करने में सबसे बड़ी बाधा है।
रेखांकित शब्द का विलोम चुनें-

(1) प्रमाद
(2) अकर्मण्य
(3) **उद्यम ✔**
(4) शिथिल

Q.198 लोकोक्ति के सही अर्थ का चयन करें- 'कभी नाव पर गाड़ी और कभी गाड़ी पर नाव ।'

(1) आपसी फूट से हानि होती है
(2) सुख के लिए जाये पर मिले दु:ख
(3) **स्थिति सर्वदा एक समान नहीं रहती ✔**
(4) बिल्कुल उल्टा काम

Q.199 'अंतहीन' और''आकाश' किस शब्द के अनेकार्थी शब्द हैं-4533

(1) **अनंत ✔**
(2) पृथ्वी
(3) शून्य
(4) अधिकार

Q.200 'हाथ कंगन को आरसी क्या'- लोकोक्तिका अर्थ क्या है?

(1) **प्रत्यक्ष को प्रमाण की क्या आवश्यकता है ✔**
(2) पुरुषार्थी के लिए सफलता सरल होती है
(3) परिवेश के अनुकूल व्यवहार करना
(4) दूसरों का अहित सोचने वाला अपना अहित कर लेता है

Answer Key / उत्तर कुंजी

1	**2**	**3**	**4**	**5**	**6**	**7**	**8**	**9**	**10**	**11**	**12**	**13**	**14**	**15**
3	1	3	2	2	2	3	2	1	3	4	2	3	1	2
16	**17**	**18**	**19**	**20**	**21**	**22**	**23**	**24**	**25**	**26**	**27**	**28**	**29**	**30**
2	4	1	4	4	3	4	4	2	3	1	1	4	2	3
31	**32**	**33**	**34**	**35**	**36**	**37**	**38**	**39**	**40**	**41**	**42**	**43**	**44**	**45**
2	2	1	4	2	2	1	3	2	1	2	1	4	3	1

46 3	**47** 4	**48** 4	**49** 1	**50** 1	**51** 3	**52** 1	**53** 1	**54** 2	**55** 2	**56** 2	**57** 1	**58** 3	**59** 2	**60** 3
61 1	**62** 2	**63** 4	**64** 2	**65** 2	**66** 2	**67** 4	**68** 3	**69** 2	**70** 4	**71** 3	**72** 2	**73** 2	**74** 4	**75** 2
76 1	**77** 4	**78** 4	**79** 4	**80** 1	**81** 2	**82** 3	**83** 4	**84** 3	**85** 3	**86** 3	**87** 4	**88** 4	**89** 3	**90** 2
91 2	**92** 2	**93** 1	**94** 3	**95** 4	**96** 2	**97** 4	**98** 1	**99** 4	**100** 1	**101** 2	**102** 3	**103** 3	**104** 3	**105** 4
106 2	**107** 3	**108** 2	**109** 3	**110** 3	**111** 1	**112** 2	**113** 1	**114** 1	**115** 3	**116** 3	**117** 4	**118** 1	**119** 1	**120** 4
121 4	**122** 3	**123** 3	**124** 4	**125** 3	**126** 2	**127** 3	**128** 1	**129** 4	**130** 1	**131** 4	**132** 2	**133** 3	**134** 3	**135** 2
136 1	**137** 4	**138** 1	**139** 2	**140** 4	**141** 3	**142** 1	**143** 2	**144** 3	**145** 3	**146** 2	**147** 3	**148** 2	**149** 2	**150** 2
151 4	**152** 2	**153** 1	**154** 1	**155** 4	**156** 1	**157** 1	**158** 3	**159** 2	**160** 3	**161** 4	**162** 4	**163** 3	**164** 3	**165** 4
166 1	**167** 3	**168** 2	**169** 4	**170** 3	**171** 3	**172** 1	**173** 1	**174** 1	**175** 2	**176** 2	**177** 2	**178** 2	**179** 2	**180** 2
181 1	**182** 4	**183** 4	**184** 2	**185** 1	**186** 1	**187** 2	**188** 1	**189** 3	**190** 3	**191** 3	**192** 4	**193** 1	**194** 3	**195** 4
196 1	**197** 3	**198** 3	**199** 1	**200** 1										

Quick Sarkari

Participant ID	
Participant Name	
Test Center Name	
Test Date	22/08/2025
Test Time	5:00 PM - 7:00 PM
Subject	Assistant Section Officer

Section : **General intelligence and Reasoning Ability**

Q.1	उत्तर की ओर अभिमुख 18 व्यक्तियों की एक पंक्ति में, सैम दायें छोर से पाँचवें स्थान पर है। यदि रॉन, सैम के बायें से आठवें स्थान पर बैठा है, तो पंक्ति के बायें छोर से रॉन का स्थान क्या है?
Ans	✗ 1. 7वां
	✗ 2. 8वां
	✓ 3. 6वां
	✗ 4. 5वां

Question ID :	4410091150505
Option 1 ID :	4410094536977
Option 2 ID :	4410094536978
Option 3 ID :	4410094536976
Option 4 ID :	4410094536979

Q.2	एक निश्चित कूट भाषा में, 'SAIL' को '6542' के रूप में और 'LAST' को '5623' के रूप में कूटबद्ध किया जाता है। दी गई कूट भाषा में 'T' के लिए कूट क्या है?
Ans	✓ 1. 3
	✗ 2. 6
	✗ 3. 2
	✗ 4. 5

Question ID :	4410091150153
Option 1 ID :	4410094535570
Option 2 ID :	4410094535569
Option 3 ID :	4410094535571
Option 4 ID :	4410094535568

Q.3	दिए गए कथनों और निष्कर्षों को ध्यानपूर्वक पढ़िए। यह मानते हुए कि कथनों में दी गई जानकारी सत्य है, भले ही वह सामान्यतः ज्ञात तथ्यों से भिन्न प्रतीत होती हो, निर्णय लीजिए कि दिए गए निष्कर्षों में से कौन-से निष्कर्ष, कथनों का तार्किक रूप से अनुसरण करते हैं। कथन: कुछ टेबल, चेयर हैं। कोई चेयर, वार्डरॉब नहीं है। सभी वार्डरॉब, अलमीरह हैं। निष्कर्ष: (I) कुछ वार्डरॉब, चेयर हैं। (II) कुछ चेयर, अलमीरह हैं।
Ans	✗ 1. केवल निष्कर्ष (II) अनुसरण करता है
	✗ 2. केवल निष्कर्ष (I) अनुसरण करता है
	✓ 3. न तो निष्कर्ष (I) और न ही (II) अनुसरण करता है
	✗ 4. निष्कर्ष (I) और (II) दोनों अनुसरण करते हैं।

Question ID :	4410091150350
Option 1 ID :	4410094536357
Option 2 ID :	4410094536356
Option 3 ID :	4410094536358
Option 4 ID :	4410094536359

QuickSarkari.com | WhatsApp Channel | Telegram: t.me/quick_sarkari

Q.4	यह प्रश्न निम्नलिखित शब्दों पर आधारित है। MAN ARE SHE YOU दाईं ओर से पहले शब्द के दूसरे अक्षर और बाईं ओर से पहले शब्द के दूसरे अक्षर के बीच, अंग्रेजी वर्णमाला क्रम में कितने अक्षर हैं?
Ans	✗ 1. 11
	✓ 2. 13
	✗ 3. 14
	✗ 4. 12

Question ID :	4410091150085
Option 1 ID :	4410094535296
Option 2 ID :	4410094535298
Option 3 ID :	4410094535299
Option 4 ID :	4410094535297

Q.5	किसी निश्चित कूट भाषा में, 'MINE' को '2973' के रूप में कूटबद्ध किया जाता है और 'ITEM' को '3782' के रूप में कूटबद्ध किया जाता है। दी गई कूट भाषा में 'T' का कूट क्या होगा?
Ans	✗ 1. 2
	✓ 2. 8
	✗ 3. 3
	✗ 4. 7

Question ID :	4410091150151
Option 1 ID :	4410094535561
Option 2 ID :	4410094535560
Option 3 ID :	4410094535563
Option 4 ID :	4410094535562

Q.6	यह प्रश्न नीचे दी गई तीन-अंकों वाली पाँच संख्याओं पर आधारित है। (बाएँ) 846 513 736 128 431 (दाएँ) (उदाहरण- 697 – पहला अंक = 6, दूसरा अंक = 9 और तीसरा अंक = 7) नोट - सभी संक्रियाएँ बाएँ से दाएँ की जानी चाहिए। यदि सबसे बड़ी संख्या के तीसरे अंक को सबसे छोटी संख्या के दूसरे अंक में जोड़ा जाए, तो क्या परिणाम प्राप्त होगा?
Ans	✗ 1. 6
	✓ 2. 8
	✗ 3. 10
	✗ 4. 9

Question ID :	4410091149991
Option 1 ID :	4410094534920
Option 2 ID :	4410094534921
Option 3 ID :	4410094534923
Option 4 ID :	4410094534922

Q.7	P, Q, R, S, T, U और V में से प्रत्येक की परीक्षा सोमवार से शुरू होकर रविवार को समाप्त होने वाले एक ही सप्ताह के अलग-अलग दिन है। R के बाद केवल दो लोगों की परीक्षा है। T से पहले केवल एक व्यक्ति की परीक्षा है। V की परीक्षा U से ठीक पहले है, लेकिन शनिवार को नहीं है। P की परीक्षा Q के ठीक बाद है। V से पहले कितने लोगों की परीक्षा है?
Ans	✗ 1. एक
	✗ 2. तीन
	✓ 3. दो
	✗ 4. चार

Question ID :	4410091150424
Option 1 ID :	4410094536652
Option 2 ID :	4410094536653
Option 3 ID :	4410094536654
Option 4 ID :	4410094536655

Q.8	निम्नलिखित अक्षर, संख्या, प्रतीक श्रृंखला का संदर्भ लीजिए और नीचे दिए गए प्रश्न का उत्तर दीजिए। सभी संख्याएँ एकल-अंकीय संख्याएँ हैं। (बाएँ) T @ 5 8 S # % B Q M * @ 9 1 Z # R B X $ 1 (दाएँ) यदि सभी प्रतीकों को श्रृंखला से हटा दिया जाए, तो निम्नलिखित में से कौन-सा, दाएँ से छठा होगा?
Ans	✗ 1. R
	✓ 2. 1
	✗ 3. 9
	✗ 4. Z

Question ID :	441009820562
Option 1 ID :	4410093236374
Option 2 ID :	4410093236373
Option 3 ID :	4410093236372
Option 4 ID :	4410093236371

Q.9	B, C, D, E, G, K और T, एक गोल मेज के परितः उसके केंद्र की ओर अभिमुख होकर बैठे हैं। T और K के बीच केवल G बैठा है। K, B के बाएँ तीसरे स्थान पर बैठा है। E, B के ठीक बाएँ पड़ोस में बैठा है। C, K का निकटतम पड़ोसी नहीं है। D के दाएँ दूसरे स्थान पर कौन बैठा है?
Ans	✓ 1. B
	✗ 2. K
	✗ 3. E
	✗ 4. G

Question ID :	4410091150242
Option 1 ID :	4410094535926
Option 2 ID :	4410094535925
Option 3 ID :	4410094535927
Option 4 ID :	4410094535924

QuickSarkari.com | WhatsApp Channel | Telegram: t.me/quick_sarkari

Q.10	एक निश्चित कूट भाषा में, 'A + B' का अर्थ है कि 'A, B की माता है', 'A – B' का अर्थ है कि 'A, B का भाई है', 'A × B' का अर्थ है कि 'A, B की पत्नी है' और 'A ÷ B' का अर्थ है कि 'A, B का पिता है'। उपरोक्त जानकारी के आधार पर, यदि 'P ÷ Q + R – S × T' है, तो Q का T से क्या संबंध है?
Ans	✗ 1. माता की माता
	✗ 2. बहन की पुत्री
	✓ 3. पत्नी की माता
	✗ 4. माता

Question ID :	4410091150314
Option 1 ID :	4410094536215
Option 2 ID :	4410094536213
Option 3 ID :	4410094536214
Option 4 ID :	4410094536212

Q.11	दिए गए कथन और निष्कर्षों को ध्यानपूर्वक पढ़िए। यह मानते हुए कि कथन में दी गई जानकारी सत्य है, भले ही वह सामान्यतः ज्ञात तथ्यों से भिन्न प्रतीत होती हो, तय कीजिए कि दिए गए निष्कर्षों में से कौन-से निष्कर्ष, दिए गए कथन के आधार पर सत्य हैं। कथन: T < S ≤ P = Q > U >R निष्कर्ष: I. S < U II. P > R
Ans	✗ 1. I और II दोनों सत्य हैं
	✗ 2. न तो I और न ही II सत्य है
	✗ 3. केवल I सत्य है
	✓ 4. केवल II सत्य है

Question ID :	4410091150573
Option 1 ID :	4410094537250
Option 2 ID :	4410094537251
Option 3 ID :	4410094537248
Option 4 ID :	4410094537249

Q.12	सात डिब्बे, P, Q, R, S, T, U और V, एक के ऊपर एक रखे गए हैं, लेकिन जरूरी नहीं कि इसी क्रम में रखे गए हों। S को सबसे ऊपर रखा गया है। S और T के बीच केवल दो डिब्बे रखे गए हैं। T और R के बीच केवल दो डिब्बे रखे गए हैं। V, S के ठीक नीचे रखा गया है। V और Q के बीच केवल दो डिब्बे रखे गए हैं। U को P के नीचे किसी एक स्थान पर रखा गया है। U के ठीक ऊपर कौन-सा डिब्बा रखा गया है?
Ans	✗ 1. U
	✓ 2. Q
	✗ 3. T
	✗ 4. V

Question ID :	4410091150164
Option 1 ID :	4410094535615
Option 2 ID :	4410094535614
Option 3 ID :	4410094535613
Option 4 ID :	4410094535612

QuickSarkari.com | WhatsApp Channel | Telegram: t.me/quick_sarkari

Q.13	दिए गए कथनों और निष्कर्षों को ध्यानपूर्वक पढ़ें। यह मानते हुए कि कथनों में दी गई जानकारी सत्य है, भले ही वह सामान्यतः ज्ञात तथ्यों से भिन्न प्रतीत होती हो, निर्णय लीजिए कि दिए गए निष्कर्षों में से कौन-से निष्कर्ष, कथनों का तार्किक रूप से अनुसरण करते हैं। कथन: सभी सेम, आलू हैं। कोई भी खीरा, टमाटर नहीं है। सभी आलू, खीरा हैं। निष्कर्ष (I): सभी खीरा, आलू हैं। निष्कर्ष (II): कुछ सेम, टमाटर हो सकते हैं।
Ans	✗ 1. केवल निष्कर्ष (II) अनुसरण करता है
	✗ 2. केवल निष्कर्ष (I) अनुसरण करता है
	✓ 3. न तो निष्कर्ष (I) और न ही निष्कर्ष (II) अनुसरण करता है
	✗ 4. निष्कर्ष (I) और (II) दोनों अनुसरण करते हैं

Question ID :	4410091150492
Option 1 ID :	4410094536925
Option 2 ID :	4410094536924
Option 3 ID :	4410094536927
Option 4 ID :	4410094536926

Q.14	एक निश्चित कूट भाषा में, 'A + B' का अर्थ है कि 'A, B का पुत्र है', 'A – B' का अर्थ है कि 'A, B की पत्नी है', 'A × B' का अर्थ है कि 'A, B का भाई है', 'A ÷ B' का अर्थ है कि 'A, B की माता है'। यदि A × B + C ÷ D – E है, तो D का A से क्या संबंध है?
Ans	✓ 1. बहन
	✗ 2. माता
	✗ 3. पति की बहन
	✗ 4. भाई

Question ID :	4410091150308
Option 1 ID :	4410094536191
Option 2 ID :	4410094536189
Option 3 ID :	4410094536188
Option 4 ID :	4410094536190

Q.15	दिए गए कथन और निष्कर्षों को ध्यानपूर्वक पढ़ें। निर्णय लीजिए कि दिए गए निष्कर्षों में से कौन-से निष्कर्ष, कथन के आधार पर सत्य हैं। कथन: B ≥ U = N ≥ K = E < D निष्कर्ष: I. B ≥ E II. N ≥ D
Ans	✗ 1. निष्कर्ष I. और II. दोनों सत्य हैं
	✓ 2. केवल निष्कर्ष I. सत्य है
	✗ 3. केवल निष्कर्ष II. सत्य है
	✗ 4. न तो निष्कर्ष I. और न ही II. सत्य है

Question ID :	4410091150563
Option 1 ID :	4410094537210
Option 2 ID :	4410094537208
Option 3 ID :	4410094537209
Option 4 ID :	4410094537211

QuickSarkari.com | WhatsApp Channel | Telegram: t.me/quick_sarkari

Q.16	एक निश्चित कूट भाषा में, 'GEAR' को '36%$' के रूप में कूटबद्ध किया जाता है तथा 'TEAR' को '6!3%' के रूप में कूटबद्ध किया जाता है। उसी भाषा में 'T' को किस प्रकार लिखा जाएगा?
Ans	✗ 1. %
	✓ 2. !
	✗ 3. 3
	✗ 4. $

Question ID :	4410091150341
Option 1 ID :	4410094536322
Option 2 ID :	4410094536320
Option 3 ID :	4410094536323
Option 4 ID :	4410094536321

Q.17	B, C, D, E, G, K और T, एक गोल मेज के परितः उसके केंद्र की ओर अभिमुख होकर बैठे हैं। T, B के दाएं तीसरे स्थान पर बैठा है। T, E के ठीक दाएं पड़ोस में बैठा है। E, G के बाएं तीसरे स्थान पर बैठा है। C, E का निकटतम पड़ोसी नहीं है। D के बाएं से गिनने पर, K और D के बीच केवल एक व्यक्ति बैठा है। C के दाएं से गिनने पर, C और D के बीच कितने व्यक्ति बैठे हैं?
Ans	✗ 1. एक
	✗ 2. दो
	✗ 3. चार
	✓ 4. तीन

Question ID :	4410091150243
Option 1 ID :	4410094535928
Option 2 ID :	4410094535929
Option 3 ID :	4410094535931
Option 4 ID :	4410094535930

Q.18	यह प्रश्न नीचे दी गई पाँच, तीन-अंकीय संख्याओं पर आधारित है। (बाएँ) 684 392 463 951 725 (दाएँ) (उदाहरण: 697 - पहला अंक = 6, दूसरा अंक = 9 और तीसरा अंक = 7) नोट- सभी संक्रियाएँ बाएँ से दाएँ की जाएँगी यदि सबसे बड़ी संख्या के तीसरे अंक को सबसे छोटी संख्या के पहले अंक में जोड़ा जाए तो परिणाम क्या होगा?
Ans	✓ 1. 4
	✗ 2. 7
	✗ 3. 11
	✗ 4. 8

Question ID :	4410091150531
Option 1 ID :	4410094537080
Option 2 ID :	4410094537081
Option 3 ID :	4410094537083
Option 4 ID :	4410094537082

Q.19	A, B, C, D, E और F एक ही इमारत के छह अलग-अलग तलों पर रहते हैं। इमारत में सबसे निचले तल का क्रमांक 1 है, उसके ऊपर वाले तल का क्रमांक 2 है और इसी प्रकार सबसे ऊपरी तल का क्रमांक 6 है। D के नीचे केवल दो व्यक्ति रहते हैं। D और E के बीच केवल दो व्यक्ति रहते हैं। F, A के ठीक नीचे रहता है, लेकिन सबसे निचले तल पर नहीं। E और B के बीच केवल तीन व्यक्ति रहते हैं। C और E के बीच कितने व्यक्ति रहते हैं?
Ans	✗ 1. दो
	✗ 2. तीन
	✗ 3. एक
	✓ 4. चार

Question ID :	4410091150392
Option 1 ID :	4410094536525
Option 2 ID :	4410094536526
Option 3 ID :	4410094536524
Option 4 ID :	4410094536527

Q.20	दिए गए कथनों और निष्कर्षों को ध्यानपूर्वक पढ़ें। यह मानते हुए कि कथनों में दी गई जानकारी सत्य है, भले ही वह सामान्यतः ज्ञात तथ्यों से भिन्न प्रतीत होती हो, निर्णय कीजिए कि दिए गए निष्कर्षों में से कौन-सा/से निष्कर्ष, कथनों का तार्किक रूप से अनुसरण करता है/करते हैं। कथन: सभी भालू, बकरी हैं। सभी बकरी, घोड़े हैं। कुछ बकरी, गधे हैं। निष्कर्ष: (I) कुछ घोड़े, गधे हैं। (II) कुछ भालू, गधे हैं।
Ans	✗ 1. केवल निष्कर्ष II अनुसरण करता है
	✗ 2. न तो निष्कर्ष I और न ही II अनुसरण करता है
	✗ 3. निष्कर्ष I और II दोनों अनुसरण करते हैं
	✓ 4. केवल निष्कर्ष I अनुसरण करता है

Question ID :	4410091150208
Option 1 ID :	4410094535789
Option 2 ID :	4410094535791
Option 3 ID :	4410094535790
Option 4 ID :	4410094535788

Section : **General intelligence and Reasoning Ability1**

Q.1	निम्नलिखित संख्या-युग्मों में, पहली संख्या पर निश्चित गणितीय संक्रियाएँ करके दूसरी संख्या प्राप्त की जाती है। किन संख्याओं द्वारा X और Y को प्रतिस्थापित किया जाना चाहिए जिससे कि :: के बाईं ओर की दो संख्याओं का पैटर्न, :: के दाईं ओर की दो संख्याओं के पैटर्न के समान हो जाए? (नोट: संख्याओं को उनके घटक अंकों में तोड़े बिना, संक्रियाएँ पूर्ण संख्याओं पर की जानी चाहिए। उदाहरण के लिए 13 को लीजिए - 13 पर संक्रियाएँ जैसे कि 13 में जोड़ना / घटाना / गुणा करना आदि 13 पर ही की जा सकती हैं। 13 को 1 और 3 में तोड़ने तथा फिर 1 और 3 पर गणितीय संक्रियाएँ करने की अनुमति नहीं है।) X : 11 :: 6 : Y
Ans	✗ 1. X = 1, Y = 8
	✗ 2. X = 1, Y = 38
	✓ 3. X = 3, Y = 38
	✗ 4. X = 3, Y = 8

Question ID :	4410091152267
Option 1 ID :	4410094543978
Option 2 ID :	4410094543981
Option 3 ID :	4410094543979
Option 4 ID :	4410094543980

Q.2	यदि '+' का अर्थ '–' है, '–' का अर्थ '×' है, '×' का अर्थ '÷' है और '÷' का अर्थ '+' है, तो निम्नलिखित समीकरण में प्रश्न-चिह्न (?) के स्थान पर क्या आएगा? 25 × 5 ÷ 16 + 2 – 8 = ?
Ans	✗ 1. 9
	✗ 2. 11
	✗ 3. 17
	✓ 4. 5

Question ID :	4410091152290
Option 1 ID :	4410094544072
Option 2 ID :	4410094544071
Option 3 ID :	4410094544070
Option 4 ID :	4410094544073

Q.3	निम्नलिखित शृंखला में प्रश्न-चिन्ह (?) के स्थान पर क्या आना चाहिए? 218 221 227 236 248 ?
Ans	✗ 1. 243
	✗ 2. 273
	✗ 3. 253
	✓ 4. 263

Question ID :	4410091152228
Option 1 ID :	4410094543822
Option 2 ID :	4410094543825
Option 3 ID :	4410094543823
Option 4 ID :	4410094543824

QuickSarkari.com | WhatsApp Channel | Telegram: t.me/quick_sarkari

Q.4	नीचे संख्याओं के दो समुच्चय दिए गए हैं। प्रत्येक संख्याओं के समुच्चय में, पहली संख्या पर एक निश्चित गणितीय संक्रिया करने पर दूसरी संख्या प्राप्त होती है। इसी प्रकार, दूसरी संख्या पर एक निश्चित गणितीय संक्रिया करने पर तीसरी संख्या प्राप्त होती है, इसी प्रकार आगे भी संख्याएँ प्राप्त होती हैं। दिए गए विकल्पों में से कौन-सा विकल्प, दिए गए समुच्चयों प्रयुक्त समान संक्रियाओं का अनुसरण करता है? (नोट: संख्याओं को उनके घटक अंकों में तोड़े बिना संक्रियाएं पूर्ण संख्याओं पर की जानी चाहिए। उदाहरण के लिए, 13 को लीजिए - 13 पर संक्रियाएं जैसे 13 में जोड़ना/घटाना/गुणा करना आदि की जा सकती हैं। 13 को 1 और 3 में तोड़ने तथा फिर 1 और 3 पर गणितीय संक्रियाएं करने की अनुमति नहीं है।) 17 - 25 - 33 - 41 23 - 31 - 39 - 47
Ans	✗ 1. 38 - 46 - 54 - 72
	✓ 2. 29 - 37 - 45 - 53
	✗ 3. 32 - 40 - 46 - 54
	✗ 4. 27 - 35 - 53 - 61

Question ID :	4410091152182
Option 1 ID :	4410094543641
Option 2 ID :	4410094543638
Option 3 ID :	4410094543639
Option 4 ID :	4410094543640

Q.5	निम्नलिखित में से कौन-सा अक्षर समूह # और % को प्रतिस्थापित करेगा ताकि :: के बाईं ओर के अक्षर समूह युग्म के बीच का पैटर्न और संबंध, :: के दाईं ओर के अक्षर समूह युग्म के बीच के पैटर्न और संबंध के समान हो? # : HJE :: QSN : %
Ans	✗ 1. # = NPK, % = KMG
	✗ 2. # = NPK, % = KNH
	✓ 3. # = NPK, % = KMH
	✗ 4. # = NPL, % = KMH

Question ID :	4410091150111
Option 1 ID :	4410094535401
Option 2 ID :	4410094535403
Option 3 ID :	4410094535400
Option 4 ID :	4410094535402

Q.6	यदि '+' और '÷' को परस्पर बदल दिया जाए तथा '×' और '–' को परस्पर बदल दिया जाए, तो निम्नलिखित समीकरण में प्रश्न-चिह्न (?) के स्थान पर क्या आएगा? 72 + 8 × 4 ÷ 15 – 6 = ?
Ans	✓ 1. 95
	✗ 2. 90
	✗ 3. 89
	✗ 4. 101

Question ID :	4410091152281
Option 1 ID :	4410094544036
Option 2 ID :	4410094544035
Option 3 ID :	4410094544034
Option 4 ID :	4410094544037

QuickSarkari.com | WhatsApp Channel | Telegram: t.me/quick_sarkari

Q.7	निम्नलिखित संख्या युग्मों में से तीन किसी प्रकार से एकसमान हैं और इसलिए एक समूह बनाते हैं। कौन-सा संख्या युग्म, उस समूह से संबंधित नहीं है? 1. 9-729 2. 6-216 3. 4-62 4. 7-343
Ans	✔ 1. 3
	✘ 2. 4
	✘ 3. 1
	✘ 4. 2

Question ID :	4410091152170
Option 1 ID :	4410094543590
Option 2 ID :	4410094543593
Option 3 ID :	4410094543591
Option 4 ID :	4410094543592

Q.8	विकल्पों में से उस आकृति की पहचान कीजिए जिसे निम्न आकृति-शृंखला में ? के स्थान पर रखने से शृंखला तार्किक रूप से पूर्ण हो जाएगी?
Ans	✘ 1. 
	✘ 2. 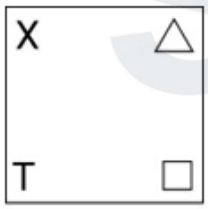
	✘ 3. 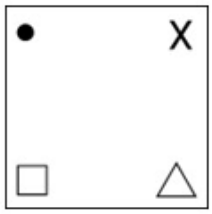
	✔ 4. 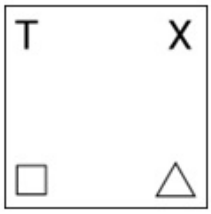

Question ID :	4410091144746
Option 1 ID :	4410094513940
Option 2 ID :	4410094513943
Option 3 ID :	4410094513942
Option 4 ID :	4410094513941

Q.9	दी गई श्रृंखला में प्रश्न-चिह्न (?) के स्थान पर क्या आएगा? 1 3 7 15 31 ?
Ans	✗ 1. 70
	✓ 2. 63
	✗ 3. 65
	✗ 4. 60

Question ID :	4410091152166
Option 1 ID :	4410094543576
Option 2 ID :	4410094543574
Option 3 ID :	4410094543577
Option 4 ID :	4410094543575

Q.10	अंग्रेजी वर्णमाला क्रम पर आधारित, निम्नलिखित चार अक्षर-समूह युग्मों में से तीन एक निश्चित तरीके से एकसमान हैं और इस प्रकार एक ग्रुप बनाते हैं। कौन-सा अक्षर-समूह उस ग्रुप से संबंधित नहीं है? (नोट: असंगत अक्षर-समूह, व्यंजनों/स्वरों की संख्या या अक्षर-समूह में उनकी स्थिति पर आधारित नहीं है।)
Ans	✗ 1. MOK
	✗ 2. SUQ
	✓ 3. QSP
	✗ 4. EGC

Question ID :	4410091150434
Option 1 ID :	4410094536695
Option 2 ID :	4410094536693
Option 3 ID :	4410094536694
Option 4 ID :	4410094536692

Q.11	नीचे संख्याओं के दो सम्मुचय दिए गए हैं। प्रत्येक संख्या सम्मुचय में, पहली संख्या पर एक निश्चित गणितीय संक्रियाएं करके दूसरी संख्या प्राप्त की गई है। इसी प्रकार, दूसरी संख्या पर एक निश्चित गणितीय संक्रियाएं करके तीसरी संख्या प्राप्त की गई है, और इसी प्रकार आगे की भी संख्या प्राप्त की गई है। निम्नलिखित में से कौन-सा विकल्प, प्रश्न में दिए गए सम्मुचयों में प्रयुक्त संक्रिया-समूह का अनुसरण करता है? (नोट: दो/तीन अंकीय संख्या को संक्रियाओं हेतु अलग-अलग अंकों में तोड़ने की अनुमति नहीं है। उदाहरण के लिए, यदि 37 के बाद 10 है, तो यह संक्रिया 3 + 7 द्वारा प्राप्त नहीं किया गया है, क्योंकि दो अंकीय संख्या को अलग-अलग अंकों में तोड़ने की अनुमति नहीं है।) 46 – 23 – 30 – 60, 58 – 29 – 36 – 72
Ans	✗ 1. 72 – 36 – 43 – 76
	✓ 2. 54 – 27 – 34 – 68
	✗ 3. 70 – 35 – 44 – 88
	✗ 4. 64 – 32 – 40 – 80

Question ID :	4410091152257
Option 1 ID :	4410094543941
Option 2 ID :	4410094543939
Option 3 ID :	4410094543940
Option 4 ID :	4410094543938

Q.12	अंग्रेजी वर्णमाला क्रम पर आधारित, निम्नलिखित चार अक्षर-समूह युग्मों में से तीन एक निश्चित तरीके से एकसमान हैं और इस प्रकार एक ग्रुप बनाते हैं। कौन-सा अक्षर-समूह उस ग्रुप से संबंधित नहीं है? (नोट: असंगत अक्षर-समूह, व्यंजनों/स्वरों की संख्या या उनकी स्थिति पर आधारित नहीं है।)
Ans	✗ 1. CEG
	✓ 2. RUX
	✗ 3. KMO
	✗ 4. FHJ

Question ID :	4410091150436
Option 1 ID :	4410094536703
Option 2 ID :	4410094536700
Option 3 ID :	4410094536702
Option 4 ID :	4410094536701

Q.13	निम्नलिखित में से किस अक्षर-समूह द्वारा # और % को प्रतिस्थापित किया जाना चाहिए ताकि :: के बाईं ओर के अक्षर-समूह युग्म के बीच अनुसरण किया गया पैटर्न और संबंध, :: के दाईं ओर के अक्षर-समूह युग्म के बीच अनुसरण किए गए पैटर्न और संबंध के समान हो? # : OKM :: WSU : %
Ans	✓ 1. # = TPR, % = RNP
	✗ 2. # = TPS, % = RNP
	✗ 3. # = TPR, % = RNO
	✗ 4. # = TPR, % = ROP

Question ID :	4410091150113
Option 1 ID :	4410094535408
Option 2 ID :	4410094535410
Option 3 ID :	4410094535409
Option 4 ID :	4410094535411

Q.14	यदि 'V' का अर्थ '÷' है, 'E' का अर्थ '×' है, 'L' का अर्थ '+' है और 'N' का अर्थ '–' है, तो निम्नलिखित समीकरण में प्रश्न-चिह्न (?) के स्थान पर क्या आएगा? 14 E 16 N 18 L 98 V 14 = ?
Ans	✗ 1. 420
	✗ 2. 156
	✗ 3. 216
	✓ 4. 213

Question ID :	4410091152332
Option 1 ID :	4410094544240
Option 2 ID :	4410094544241
Option 3 ID :	4410094544238
Option 4 ID :	4410094544239

QuickSarkari.com | WhatsApp Channel | Telegram: t.me/quick_sarkari

Q.15	उस सेट का चयन कीजिए, जिसमें संख्याएं उसी प्रकार से संबंधित हैं जिस प्रकार निम्नलिखित सेटों की संख्याएं संबंधित है। (नोट: संख्याओं को उनके घटक अंकों में तोड़े बिना संक्रियाएं पूर्ण संख्याओं पर की जानी चाहिए। उदाहरण के लिए, 13 को लीजिए - 13 पर संक्रियाएं जैसे 13 में जोड़ना/घटाना/गुणा करना आदि की जा सकती हैं। 13 को 1 और 3 में तोड़ने तथा फिर 1 और 3 पर गणितीय संक्रियाएं करने की अनुमति नहीं है।) **(11, 6, 85)** **(14, 5, 171)**
Ans	✗ 1. (7, 3, 42)
	✓ 2. (8, 2, 60)
	✗ 3. (6, 4, 24)
	✗ 4. (12, 10, 96)

Question ID :	**4410091152217**
Option 1 ID :	**4410094543779**
Option 2 ID :	**4410094543778**
Option 3 ID :	**4410094543781**
Option 4 ID :	**4410094543780**

Q.16	जब दर्पण को नीचे दिखाए अनुसार MN पर रखा जाता है, तो दी गई आकृति के सही दर्पण प्रतिबिंब का चयन कीजिए। 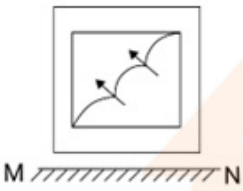
Ans	✗ 1. 
	✓ 2. 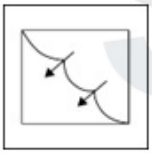
	✗ 3. 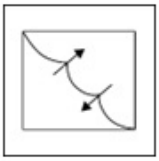
	✗ 4. 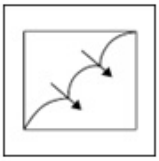

Question ID :	**4410091144736**
Option 1 ID :	**4410094513901**
Option 2 ID :	**4410094513902**
Option 3 ID :	**4410094513903**
Option 4 ID :	**4410094513900**

QuickSarkari.com | WhatsApp Channel | Telegram: t.me/quick_sarkari

Q.17	उस समुच्चय का चयन करें जिसमें संख्याएँ उसी तरह से संबंधित हैं जैसे कि निम्नलिखित समुच्चयों की संख्याएँ संबंधित हैं। (नोट: संख्याओं को उनके घटक अंकों में तोड़े बिना पूर्ण संख्याओं पर संक्रियाएँ की जानी चाहिए। उदाहरण के लिए 13 को लीजिए - 13 पर संक्रियाएँ, जैसे 13 में जोड़ना/घटाना/गुणा करना आदि, की जा सकती हैं। 13 को 1 और 3 में तोड़ना तथा फिर 1 और 3 पर गणितीय संक्रियाएँ करने की अनुमति नहीं है) (15, 6, 90) (24, 3, 72)
Ans	✔ 1. (26, 4, 104)
	✘ 2. (23, 5, 105)
	✘ 3. (32, 3, 92)
	✘ 4. (28, 4, 92)

Question ID :	4410091152197
Option 1 ID :	4410094543698
Option 2 ID :	4410094543701
Option 3 ID :	4410094543700
Option 4 ID :	4410094543699

Q.18	यदि '+' और '–' को परस्पर बदल दिया जाए तथा '×' और '÷' को परस्पर बदल दिया जाए, तो निम्नलिखित समीकरण में प्रश्न-चिह्न (?) के स्थान पर क्या आएगा? 101 ÷ 78 + 13013 × 13 – 72 = ?
Ans	✘ 1. 6449
	✘ 2. 5669
	✔ 3. 6949
	✘ 4. 5889

Question ID :	4410091152320
Option 1 ID :	4410094544191
Option 2 ID :	4410094544192
Option 3 ID :	4410094544190
Option 4 ID :	4410094544193

Q.19	अंग्रेजी वर्णमाला क्रम पर आधारित, निम्नलिखित चार अक्षर-समूह युग्मों में से तीन एक निश्चित तरीके से एकसमान हैं और इस प्रकार एक ग्रुप बनाते हैं। कौन-सा अक्षर-समूह युग्म उस ग्रुप से संबंधित नहीं है? (नोट: असंगत अक्षर-समूह युग्म, व्यंजनों/स्वरों की संख्या या उनकी स्थिति पर आधारित नहीं है।)
Ans	✘ 1. SW – QU
	✔ 2. NR – PT
	✘ 3. UY – SW
	✘ 4. QU – OS

Question ID :	4410091150477
Option 1 ID :	4410094536866
Option 2 ID :	4410094536867
Option 3 ID :	4410094536864
Option 4 ID :	4410094536865

Q.20	निम्नलिखित में से किस अक्षर-समूह द्वारा # और % को प्रतिस्थापित किया जाना चाहिए ताकि :: के बाईं ओर के अक्षर-समूह युग्म के बीच अनुसरण किया गया पैटर्न और संबंध, :: के दाईं ओर के अक्षर-समूह युग्म के बीच अनुसरण किए गए पैटर्न और संबंध के समान हो? # : MHJ :: VQS : %
Ans	✔ 1. # = SNP, % = PKM
	✘ 2. # = SNP, % = PKN
	✘ 3. # = SNO, % = PKM
	✘ 4. # = SNP, % = PLM

Question ID :	4410091150112
Option 1 ID :	4410094535404
Option 2 ID :	4410094535405
Option 3 ID :	4410094535406
Option 4 ID :	4410094535407

Section : **General Awareness**

Q.1	2025-26 के बजट में किस राज्य में मखाना बोर्ड की स्थापना का प्रस्ताव है?
Ans	✘ 1. मध्य प्रदेश
	✔ 2. बिहार
	✘ 3. पश्चिम बंगाल
	✘ 4. उत्तर प्रदेश

Question ID :	44100980168
Option 1 ID :	441009318455
Option 2 ID :	441009318457
Option 3 ID :	441009318456
Option 4 ID :	441009318454

Q.2	निम्नलिखित में से अकबर के किस सैन्य कमांडर ने मालवा के विरुद्ध अभियान (expedition) का नेतृत्व किया था?
Ans	✔ 1. अधम खान
	✘ 2. आसफ खान
	✘ 3. दाऊद खान
	✘ 4. जफर खान

Question ID :	4410091124437
Option 1 ID :	4410094433313
Option 2 ID :	4410094433314
Option 3 ID :	4410094433316
Option 4 ID :	4410094433315

QuickSarkari.com | WhatsApp Channel | Telegram: t.me/quick_sarkari

Q.3	तरलता जाल में धन की अपेक्षी मांग के परिणामस्वरूप निम्नलिखित में से कौन-सा परिणाम होता है?
Ans	✗ 1. यह घटकर शून्य हो जाती है।
	✗ 2. यह ऋणात्मक हो जाती है।
	✗ 3. यह स्थिर रहती है।
	✓ 4. यह अनंत तक बढ़ जाती है।

Question ID :	441009646783
Option 1 ID :	4410092541247
Option 2 ID :	4410092541250
Option 3 ID :	4410092541249
Option 4 ID :	4410092541248

Q.4	13 से 19 जनवरी 2025 तक खो-खो विश्व कप (Kho Kho World Cup) का पहला संस्करण किस भारतीय शहर में आयोजित किया गया था?
Ans	✗ 1. हैदराबाद
	✗ 2. चेन्नई
	✓ 3. नई दिल्ली
	✗ 4. कोलकाता

Question ID :	441009375615
Option 1 ID :	4410091468014
Option 2 ID :	4410091468015
Option 3 ID :	4410091468016
Option 4 ID :	4410091468017

Q.5	निम्नलिखित में से कौन-सा देश, फरवरी 2025 में डिजिटल पायलट लाइसेंस शुरू करने वाला दूसरा देश बन गया?
Ans	✓ 1. भारत
	✗ 2. UK
	✗ 3. सिंगापुर
	✗ 4. USA

Question ID :	441009192107
Option 1 ID :	441009757010
Option 2 ID :	441009757011
Option 3 ID :	441009757012
Option 4 ID :	441009757009

Q.6	पेरिस 2024 ओलंपिक में निशानेबाजी में ओलंपिक पदक जीतने वाली प्रथम भारतीय महिला कौन बनीं?
Ans	✗ 1. अंजलि भागवत
	✗ 2. हीना सिद्धू
	✓ 3. मनु भाकर
	✗ 4. अपूर्वी चंदेला

Question ID :	441009375549
Option 1 ID :	4410091467753
Option 2 ID :	4410091467751
Option 3 ID :	4410091467750
Option 4 ID :	4410091467752

Q.7	वर्ष 2024 में भारत के किस शहर में PM2.5 सांद्रता सबसे अधिक थी?
Ans	✗ 1. बर्नीहाट
	✗ 2. गुड़गांव
	✗ 3. ग्रेटर नोएडा
	✓ 4. दिल्ली

Question ID :	441009112843
Option 1 ID :	441009448941
Option 2 ID :	441009448940
Option 3 ID :	441009448942
Option 4 ID :	441009448939

Q.8	बौद्ध वास्तुकला में, _____ एक मंदिर या तीर्थस्थान को संदर्भित करता है, विशेष रूप से एक प्रार्थना कक्ष जिसमें एक छोर पर स्तूप होता है।
Ans	✗ 1. मस्त (mast)
	✗ 2. टीला (mound)
	✗ 3. यस्ति (yasti)
	✓ 4. चैत्य (chaitya)

Question ID :	4410091120279
Option 1 ID :	4410094417002
Option 2 ID :	4410094417005
Option 3 ID :	4410094417003
Option 4 ID :	4410094417004

Q.9	बैंकों द्वारा साख निर्माण में नकद आरक्षित अनुपात (CRR) की क्या भूमिका है?
Ans	✓ 1. यह बैंकों को जमा राशि का एक हिस्सा आरक्षित के रूप में रखने की आवश्यकता के द्वारा ऋण की राशि को सीमित करता है।
	✗ 2. यह आपातकालीन स्थितियों के लिए बैंकों द्वारा रखा जाने वाला स्वैच्छिक आरक्षित है।
	✗ 3. यह उस ऋण की कुल राशि में महत्वपूर्ण वृद्धि करता है जिसे बैंक उधारकर्ताओं को सुरक्षित रूप से प्रदान कर सकते हैं।
	✗ 4. इसका बैंकों के उधार देने के सामर्थ्य पर कोई प्रभाव नहीं पड़ता है।

Question ID :	441009297236
Option 1 ID :	4410091156022
Option 2 ID :	4410091156023
Option 3 ID :	4410091156020
Option 4 ID :	4410091156021

Q.10	AI4Bhārat द्वारा विकसित ओपन-सोर्स वीडियो ट्रांसक्रिएशन प्लेटफ़ॉर्म का नाम बताइए जो उपयोगकर्ताओं को विभिन्न भारतीय भाषाओं में ऑडियो करने बनाने और एडिट करने की सुविधा देता है।
Ans	✓ 1. चित्रलेखा (Chitralekha)
	✗ 2. सर्वम-1 AI (Sarvam-1 AI)
	✗ 3. भारतजेन (BharatGen)
	✗ 4. भाषिणी (BHASHINI)

Question ID :	441009375544
Option 1 ID :	4410091467730
Option 2 ID :	4410091467732
Option 3 ID :	4410091467731
Option 4 ID :	4410091467733

Q.11	निम्नलिखित में से किस दिल्ली सुल्तान के शासनकाल के दौरान दक्कन के राजनीतिक क्षितिज पर बहमनी साम्राज्य का उदय हुआ था?
Ans	✗ 1. नासिरुद्दीन महमूद
	✗ 2. गयासुद्दीन बलबन
	✓ 3. मुहम्मद-बिन-तुगलक
	✗ 4. अलाउद्दीन खिलजी

Question ID :	4410091124434
Option 1 ID :	4410094433304
Option 2 ID :	4410094433301
Option 3 ID :	4410094433302
Option 4 ID :	4410094433303

Q.12	_____ प्रत्येक परिवार के लिए कम से कम एक बुनियादी बैंकिंग खाते के साथ बैंकिंग सुविधाओं तक सार्वभौमिक पहुँच के लिए एक मंच प्रदान करता है।
Ans	✓ 1. जन धन योजना (Jan Dhan Yojana)
	✗ 2. वित्तीय समावेशन (Financial inclusion)
	✗ 3. बेसल मानदंड (Basel norms)
	✗ 4. प्रत्यक्ष लाभ अंतरण (Direct Benefit Transfer - DBT)

Question ID :	4410091121087
Option 1 ID :	4410094420233
Option 2 ID :	4410094420232
Option 3 ID :	4410094420231
Option 4 ID :	4410094420234

Q.13	ग्रामीण और शहरी क्षेत्रों में घटता गिनी गुणांक (Gini coefficient) क्या निरूपित करता है?
Ans	✓ 1. ह्रासमान आय असमानता
	✗ 2. आर्थिक विकास में गतिरोध
	✗ 3. वर्धमान आय असमानता
	✗ 4. समग्र आर्थिक गतिविधि में कमी

Question ID :	44100980379
Option 1 ID :	441009319299
Option 2 ID :	441009319297
Option 3 ID :	441009319296
Option 4 ID :	441009319298

Q.14	वर्ष 1876 में भारतीय संघ (Indian Association) की नींव किसने रखी थी?
Ans	✗ 1. दादाभाई नौरोजी
	✓ 2. सुरेन्द्रनाथ बनर्जी
	✗ 3. महादेव गोविंद रानाडे
	✗ 4. फिरोजशाह मेहता

Question ID :	4410091124420
Option 1 ID :	4410094433245
Option 2 ID :	4410094433247
Option 3 ID :	4410094433246
Option 4 ID :	4410094433248

QuickSarkari.com | WhatsApp Channel | Telegram: t.me/quick_sarkari

Q.15	1991 के बाद औद्योगिक नीति के संबंध में निम्नलिखित में से कौन-सा कथन सत्य है?
Ans	✗ 1. किसी भी उद्योग में विदेशी निवेश को सीमित करके 1% कर दिया गया।
	✓ 2. अधिकांश उद्योगों के लिए लाइसेंसिंग को रद्द कर दिया गया।
	✗ 3. लघु उद्योगों को विदेशी प्रतिस्पर्धा से पूरी तरह सुरक्षित रखा गया।
	✗ 4. सभी उद्योगों में सार्वजनिक क्षेत्र की उपस्थिति बढ़ गई।

Question ID :	44100966168
Option 1 ID :	441009263621
Option 2 ID :	441009263618
Option 3 ID :	441009263620
Option 4 ID :	441009263619

Q.16	मानव पूंजी और आर्थिक विकास के बीच संबंध के बारे में निम्नलिखित में से कौन-सा कथन सत्य है?
Ans	✗ 1. आर्थिक विकास और मानव पूँजी निर्माण में कोई संबंध नहीं होता है।
	✓ 2. मानव पूँजी में निवेश से आर्थिक विकास बढ़ सकता है।
	✗ 3. मानव पूँजी में अधिक निवेश से आर्थिक विकास कम होता है।
	✗ 4. आर्थिक विकास पूरी तरह से भौतिक पूँजी पर निर्भर करता है, न कि मानव पूँजी पर।

Question ID :	44100973682
Option 1 ID :	441009293043
Option 2 ID :	441009293044
Option 3 ID :	441009293042
Option 4 ID :	441009293045

Q.17	कोलकाता में निम्नलिखित में से कौन-सी इमारत विक्टोरियन युग का पहला एंग्लिकन पवित्र स्थान (Anglican holy place) है?
Ans	✓ 1. सेंट पॉल कैथेड्रल
	✗ 2. विक्टोरिया मेमोरियल हॉल
	✗ 3. कोलकाता टाउन हॉल
	✗ 4. मार्बल पैलेस

Question ID :	4410091120300
Option 1 ID :	4410094417087
Option 2 ID :	4410094417088
Option 3 ID :	4410094417089
Option 4 ID :	4410094417086

Q.18	1942 में, भारत छोड़ो आंदोलन के दौरान बॉम्बे के गोवालिया टैंक मैदान में निम्नलिखित में से किसने भारतीय राष्ट्रीय ध्वज फहराया था?
Ans	✗ 1. सुचेता कृपलानी
	✗ 2. सरोजिनी नायडू
	✓ 3. अरुणा आसफ अली
	✗ 4. भीकाजी कामा

Question ID :	4410091124399
Option 1 ID :	4410094433161
Option 2 ID :	4410094433164
Option 3 ID :	4410094433162
Option 4 ID :	4410094433163

Q.19	2025 की राज्यों की स्थिति रिपोर्ट (State of States report) में उल्लेख किया गया है कि 2030 तक $10 ट्रिलियन की अर्थव्यवस्था हासिल करने की भारत की महत्वाकांक्षा को _____ से संबंधित चुनौतियों का सामना करना पड़ रहा है।
Ans	✗ 1. जनसंख्या-संसाधन विरोधाभास
	✓ 2. ऊर्जा-आर्थिक संवृद्धि विरोधाभास
	✗ 3. शहरी-ग्रामीण विकास विरोधाभास
	✗ 4. औद्योगिक-कृषि विरोधाभास

Question ID :	441009112926
Option 1 ID :	441009449268
Option 2 ID :	441009449267
Option 3 ID :	441009449269
Option 4 ID :	441009449270

Q.20	सुभाष चन्द्र बोस की आत्मकथा किस नाम से प्रसिद्ध है?
Ans	✗ 1. माय लाइफ जर्नी (My Life Journey)
	✗ 2. माय स्ट्रगल ऑफ लाइफ (My Struggle of Life)
	✓ 3. एन इंडियन पिलग्रीम (An Indian Pilgrim)
	✗ 4. माय लाइफ स्टोरी (My Life Story)

Question ID :	4410091124421
Option 1 ID :	4410094433250
Option 2 ID :	4410094433252
Option 3 ID :	4410094433249
Option 4 ID :	4410094433251

Section : **General Awareness1**

Q.1	ओला एक प्रकार की वर्षा है, जिसमें _____।
Ans	✓ 1. बारिश में बर्फ के ठोस गोले गिरते हैं
	✗ 2. ठंडी सतह पर बर्फ के छोटे-छोटे क्रिस्टल निक्षेपित हो जाते हैं
	✗ 3. ज़मीन पर रखी वस्तुओं के आस-पास जल की बूंदें निक्षेपित हो जाती हैं
	✗ 4. झीलों की सतह पर बर्फ के क्रिस्टलों की पंखनुमा संरचना बन जाती है

Question ID :	4410091217552
Option 1 ID :	4410094803596
Option 2 ID :	4410094803594
Option 3 ID :	4410094803593
Option 4 ID :	4410094803595

Q.2	लक्ष्मीप्रिया महापात्रा भारत के निम्नलिखित में से किस शास्त्रीय नृत्य शैली से जुड़ी थीं?
Ans	✗ 1. सत्रिया
	✓ 2. ओडिसी
	✗ 3. कुचिपुड़ी
	✗ 4. कथक

Question ID :	4410091120241
Option 1 ID :	4410094416853
Option 2 ID :	4410094416852
Option 3 ID :	4410094416851
Option 4 ID :	4410094416850

Q.3	राज्यसभा के संघटन और प्रतिनिधित्व के संबंध में निम्नलिखित में से कौन-सा कथन सही है?
Ans	✗ 1. एकल संक्रमणीय मत के माध्यम से आनुपातिक प्रतिनिधित्व प्रणाली का उपयोग केवल मनोनीत सदस्यों के निर्वाचन के लिए किया जाता है।
	✗ 2. राज्यसभा की अधिकतम सदस्य संख्या 250 है, जिसमें सभी सदस्य अप्रत्यक्ष रूप से निर्वाचित होते हैं।
	✗ 3. राज्यसभा में, सभी संघ शासित प्रदेशों का प्रतिनिधित्व है।
	✓ 4. संविधान की चौथी अनुसूची, राज्यों और केंद्र शासित प्रदेशों को राज्यसभा में सीटों के आवंटन से संबंधित है।

Question ID :	44100960024
Option 1 ID :	441009239038
Option 2 ID :	441009239035
Option 3 ID :	441009239037
Option 4 ID :	441009239036

Q.4	निम्नलिखित में से कौन-सा घटक किसी स्थान की जलवायु को नियंत्रित नहीं कर सकता है?
Ans	✗ 1. ऊंचाई
	✓ 2. मृदा का प्रकार
	✗ 3. उच्चावच संरचनाएं
	✗ 4. समुद्री धराएं

Question ID :	4410091217560
Option 1 ID :	4410094803626
Option 2 ID :	4410094803625
Option 3 ID :	4410094803628
Option 4 ID :	4410094803627

Q.5	एक ही चट्टान को तराश कर बनाया गया कैलाश मंदिर (Kailasa Temple), एक महत्वपूर्ण वास्तुशिल्प कृति है, जो किस UNESCO विश्व धरोहर स्थल में स्थित है?
Ans	✗ 1. महाबलीपुरम
	✓ 2. एलोरा
	✗ 3. हम्पी
	✗ 4. कार्ला

Question ID :	4410091120226
Option 1 ID :	4410094416793
Option 2 ID :	4410094416790
Option 3 ID :	4410094416792
Option 4 ID :	4410094416791

Q.6	भारतीय संविधान के अनुच्छेद 239 के अनुसार, राष्ट्रीय राजधानी क्षेत्र दिल्ली के मुख्यमंत्री सहित मंत्रिपरिषद की संख्या, _____ से अधिक नहीं होगी।
Ans	✗ 1. विधानसभा के कुल सदस्यों के 15%
	✓ 2. विधानसभा के कुल सदस्यों के 10%
	✗ 3. विधानसभा के कुल सदस्यों के 8%
	✗ 4. विधानसभा के सदस्यों के 6%

Question ID :	4410091118952
Option 1 ID :	4410094411699
Option 2 ID :	4410094411698
Option 3 ID :	4410094411701
Option 4 ID :	4410094411700

Q.7	प्रकाश संश्लेषण में अप्रकाशिक अभिक्रिया के संबंध में निम्नलिखित में से कौन-सा कथन सही है?
Ans	✗ 1. यह अभिक्रिया केवल ऐडेनोसिन ट्राइफॉस्फेट (ATP) पर निर्भर करती है।
	✗ 2. यह अभिक्रिया अँधेरे में होती है।
	✗ 3. यह अभिक्रिया केवल निकोटिनैमाइड ऐडेनीन डाइन्यूक्लिओटाइड फॉस्फेट (NADPH) पर निर्भर करती है।
	✓ 4. यह अभिक्रिया प्रत्यक्ष रूप से प्रकाश में नहीं होती है।

Question ID :	44100962547
Option 1 ID :	441009249248
Option 2 ID :	441009249249
Option 3 ID :	441009249250
Option 4 ID :	441009249251

Q.8	भारतीय संविधान का कौन-सा अनुच्छेद, भारत के नियंत्रक एवं महालेखा परीक्षक के कर्तव्यों और शक्तियों के प्रावधान से संबंधित है?
Ans	✗ 1. अनुच्छेद 150
	✗ 2. अनुच्छेद 151
	✓ 3. अनुच्छेद 149
	✗ 4. अनुच्छेद 148

Question ID :	4410091118964
Option 1 ID :	4410094411748
Option 2 ID :	4410094411749
Option 3 ID :	4410094411747
Option 4 ID :	4410094411746

Q.9	कोपेन की योजना के अनुसार भारत में 'BShw' किस प्रकार की जलवायु को दर्शाता है?
Ans	✗ 1. ध्रुवीय प्रकार
	✓ 2. अर्ध-शुष्क स्टेपी जलवायु
	✗ 3. शुष्क शीतकाल वाला मानसून
	✗ 4. शुष्क ग्रीष्मकाल वाला मानसून

Question ID :	4410091128266
Option 1 ID :	4410094448617
Option 2 ID :	4410094448618
Option 3 ID :	4410094448619
Option 4 ID :	4410094448616

Q.10	निम्नलिखित में से कौन-सा एक आनुवंशिक विकार नहीं है?
Ans	✗ 1. दात्र कोशिका रोग (Sickle cell disease)
	✗ 2. खंड ओष्ठ और तालु (Cleft lip and palate)
	✗ 3. यकृत तंतुमयता (Liver fibrosis)
	✓ 4. पीत ज्वर (Yellow fever)

Question ID :	4410091128769
Option 1 ID :	4410094450630
Option 2 ID :	4410094450633
Option 3 ID :	4410094450631
Option 4 ID :	4410094450632

Q.11	मानव शरीर में शुक्राणु उत्पन्न करने वाला अंग _____ है।
Ans	✗ 1. गर्भाशय ग्रीवा
	✗ 2. डिंबग्रंथि
	✓ 3. वृषण
	✗ 4. गर्भाशय

Question ID :	44100985215
Option 1 ID :	441009338568
Option 2 ID :	441009338569
Option 3 ID :	441009338570
Option 4 ID :	441009338571

Q.12	निम्नलिखित में से नदियों का कौन-सा समूह, सिंधु जल संधि 1960 में शामिल है?
Ans	✗ 1. सिंधु, झेलम, चिनाब, रावी, यमुना और सतलुज
	✓ 2. सिंधु, झेलम, चिनाब, रावी, व्यास और सतलुज
	✗ 3. सिंधु, झेलम, घग्गर, रावी, व्यास और सतलुज
	✗ 4. सिंधु, झेलम, चिनाब, घग्गर, व्यास और सतलुज

Question ID :	4410091128249
Option 1 ID :	4410094448550
Option 2 ID :	4410094448548
Option 3 ID :	4410094448551
Option 4 ID :	4410094448549

Q.13	निम्नलिखित में से कौन-सा संस्कृत भाषा संस्थान उत्तर प्रदेश राज्य में स्थित है?
Ans	✗ 1. राष्ट्रीय संस्कृत विश्वविद्यालय
	✓ 2. संपूर्णानंद संस्कृत विश्वविद्यालय
	✗ 3. श्री सोमनाथ संस्कृत विश्वविद्यालय
	✗ 4. श्री लाल बहादुर शास्त्री राष्ट्रीय संस्कृत विश्वविद्यालय

Question ID :	4410091120263
Option 1 ID :	4410094416938
Option 2 ID :	4410094416940
Option 3 ID :	4410094416941
Option 4 ID :	4410094416939

Q.14	कोनार, हाहारो, जमुनिया आदि किस नदी की सहायक नदियाँ हैं?
Ans	✗ 1. महानदी
	✗ 2. गोदावरी
	✗ 3. सोन
	✓ 4. दामोदर

Question ID :	4410091128248
Option 1 ID :	4410094448547
Option 2 ID :	4410094448544
Option 3 ID :	4410094448546
Option 4 ID :	4410094448545

QuickSarkari.com | WhatsApp Channel | Telegram: t.me/quick_sarkari

Q.15	केंद्र शासित प्रदेश, जम्मू और कश्मीर के पहले उपराज्यपाल कौन थे?
Ans	✗ 1. बी.टी. कुलकर्णी
	✓ 2. गिरीश चंद्र मुर्मू
	✗ 3. मनोज सिन्हा
	✗ 4. एल.के. झा

Question ID :	4410091118973
Option 1 ID :	4410094411784
Option 2 ID :	4410094411783
Option 3 ID :	4410094411782
Option 4 ID :	4410094411785

Q.16	निम्नलिखित में से कौन-सा स्तूप वास्तुकला के तीन घटकों को निरूपित करता है?
Ans	✓ 1. अंड, हर्मिका, और छत्र (Anda, Harmika, and Chattra)
	✗ 2. हर्मिका, वेदिका, और अंतेवासिन (Harmika, Vedika, and Antevasin)
	✗ 3. बेस, शैफ्ट और कैपिटल (Base, Shaft, and Capital)
	✗ 4. गर्भगृह, शिखर और मंडप (Garbhagriha, Shikhara, and Mandapa)

Question ID :	4410091120236
Option 1 ID :	4410094416830
Option 2 ID :	4410094416832
Option 3 ID :	4410094416833
Option 4 ID :	4410094416831

Q.17	भारत में, जनसंख्या आँकड़े आकार, लिंग अनुपात, घनत्व और किस आयु-आधारित जनसंख्या संकेतक को मापते हैं?
Ans	✗ 1. जन्म दर
	✗ 2. मृत्यु दर
	✗ 3. प्रजनन दर
	✓ 4. निर्भरता अनुपात

Question ID :	441009322773
Option 1 ID :	4410091257272
Option 2 ID :	4410091257271
Option 3 ID :	4410091257270
Option 4 ID :	4410091257273

Q.18	नागरिकता संशोधन अधिनियम 2019 के अंतर्गत, निम्नलिखित में से किस समुदाय से संबंधित व्यक्तियों के लिए भारतीय नागरिकता पर विचार नहीं किया जाएगा?
Ans	✗ 1. बौद्ध
	✗ 2. हिन्दू
	✗ 3. पारसी
	✓ 4. मुसलमान

Question ID :	4410091118939
Option 1 ID :	4410094411648
Option 2 ID :	4410094411647
Option 3 ID :	4410094411649
Option 4 ID :	4410094411646

Q.19	दिसंबर 2023 तक की स्थिति के अनुसार, भारत सरकार के मौसम विज्ञान (भारत मौसम विज्ञान विभाग) के महानिदेशक कौन हैं?
Ans	✗ 1. स्वप्ना पनिकल (Swapna Panickal)
	✗ 2. रॉक्सी मैथ्यू कोल (Roxy Mathew Koll)
	✗ 3. एस.के. सतीश (SK Satheesh)
	✓ 4. डॉ मृत्युंजय महापात्रा (Dr. Mrutyunjay Mohapatra)

Question ID :	4410091128255
Option 1 ID :	4410094448574
Option 2 ID :	4410094448573
Option 3 ID :	4410094448575
Option 4 ID :	4410094448572

Q.20	भारत सरकार ने वर्ष 2021 में संशोधित 'समग्र शिक्षा योजना' को _____ वर्ष की अवधि तक जारी रखने की मंजूरी दी थी।
Ans	✓ 1. चार
	✗ 2. बीस
	✗ 3. तीन
	✗ 4. दस

Question ID :	4410091128265
Option 1 ID :	4410094448613
Option 2 ID :	4410094448615
Option 3 ID :	4410094448612
Option 4 ID :	4410094448614

Section : **Arithmetical and Numerical Ability**

Q.1	0.5678 को साधारण भिन्न के रूप में व्यक्त करें।
Ans	✗ 1. $\frac{5111}{99}$
	✓ 2. $\frac{5111}{9000}$
	✗ 3. $\frac{5222}{9000}$
	✗ 4. $\frac{5222}{990}$

Question ID :	4410091151571
Option 1 ID :	4410094541221
Option 2 ID :	4410094541220
Option 3 ID :	4410094541223
Option 4 ID :	4410094541222

Q.2 निम्नांकित तालिका में छह माह की अवधि में एक संयंत्र के उत्पादन (इकाइयों में) को दर्शाया गया है।

जुलाई	अगस्त	सितम्बर	अक्टूबर	नवम्बर	दिसम्बर
212	232	322	395	266	273

जुलाई, सितम्बर और नवम्बर में किए गए उत्पादन का अगस्त, अक्टूबर और दिसम्बर में किए गए उत्पादन से अनुपात कितना है?

Ans
✗ 1. 7 : 8
✗ 2. 8 : 11
✓ 3. 8 : 9
✗ 4. 5 : 6

Question ID :	4410091151578
Option 1 ID :	4410094541248
Option 2 ID :	4410094541251
Option 3 ID :	4410094541249
Option 4 ID :	4410094541250

Q.3 एक बेड का विक्रय मूल्य, उसके प्रारंभिक विक्रय मूल्य का 6 गुना हो जाने पर लाभ, प्रारंभिक लाभ का 10 गुना हो जाता है। प्रारंभिक लाभ प्रतिशत (% में) ज्ञात कीजिए।

Ans
✗ 1. 66.67
✗ 2. 60
✗ 3. 166.67
✓ 4. 125

Question ID :	4410091151418
Option 1 ID :	4410094540609
Option 2 ID :	4410094540611
Option 3 ID :	4410094540610
Option 4 ID :	4410094540608

Q.4 निम्नलिखित आँकड़ों से जून और जुलाई माह में कुल अपव्यय के बीच अंतर (इकाइयों में) की गणना कीजिए।

	मई	जून	जुलाई
संयंत्र A में अपव्यय (इकाइयों में)	250	240	150
संयंत्र B में अपव्यय (इकाइयों में)	350	260	220

Ans
✗ 1. 90
✗ 2. 80
✓ 3. 130
✗ 4. 120

Question ID :	4410091151576
Option 1 ID :	4410094541240
Option 2 ID :	4410094541241
Option 3 ID :	4410094541242
Option 4 ID :	4410094541243

QuickSarkari.com | WhatsApp Channel | Telegram: t.me/quick_sarkari

Q.5	श्रमिकों की संख्या में कमी के कारण एक कारखाने में उत्पादन 40% कम हो जाता है। उत्पादन को मूल स्तर तक बहाल करने के लिए कार्य-घंटों में लगभग कितने प्रतिशत की वृद्धि करनी होगी?
Ans	✗ 1. 40%
	✗ 2. 71.77%
	✓ 3. 66.67%
	✗ 4. 60%

Question ID :	4410091151458
Option 1 ID :	4410094540769
Option 2 ID :	4410094540771
Option 3 ID :	4410094540768
Option 4 ID :	4410094540770

Q.6	13 संख्याओं का औसत 8 है। यदि प्रत्येक संख्या में 8 से गुणा किया जाए, तो नया औसत कितना होगा?
Ans	✗ 1. 8
	✗ 2. 13
	✓ 3. 64
	✗ 4. 16

Question ID :	4410091151560
Option 1 ID :	4410094541177
Option 2 ID :	4410094541179
Option 3 ID :	4410094541176
Option 4 ID :	4410094541178

Q.7	$1.1\overline{24}$ को $\frac{p}{q}$ के पदों में व्यक्त करें, जहाँ q शून्य नहीं है।
Ans	✗ 1. $\frac{321}{330}$
	✗ 2. $\frac{397}{330}$
	✗ 3. $\frac{343}{330}$
	✓ 4. $\frac{371}{330}$

Question ID :	4410091151573
Option 1 ID :	4410094541228
Option 2 ID :	4410094541231
Option 3 ID :	4410094541229
Option 4 ID :	4410094541230

Q.8	प्रथम 220 सम प्राकृत संख्याओं का औसत ज्ञात कीजिए।
Ans	✗ 1. 221.5
	✗ 2. 222
	✗ 3. 220.5
	✓ 4. 221

Question ID :	441009187060
Option 1 ID :	441009739094
Option 2 ID :	441009739095
Option 3 ID :	441009739093
Option 4 ID :	441009739092

Q.9	एक दुकानदार 20% लाभ कमाता है और वास्तविक से 15% कम वजन वाले बाट का उपयोग करता है। उसका कुल वास्तविक लाभ प्रतिशत कितना है?
Ans	✗ 1. $\frac{500}{17}\%$
	✗ 2. $\frac{800}{17}\%$
	✓ 3. $\frac{700}{17}\%$
	✗ 4. $\frac{900}{17}\%$

Question ID :	4410091151569
Option 1 ID :	4410094541212
Option 2 ID :	4410094541215
Option 3 ID :	4410094541213
Option 4 ID :	4410094541214

Q.10	जनबल में कमी के कारण, एक कारखाने के उत्पादन में 36% की कमी होती है। उत्पादन के मूल स्तर को पहले जैसा करने के लिए कार्य घंटों में लगभग कितने प्रतिशत की वृद्धि की जानी चाहिए?
Ans	✗ 1. 62.5%
	✓ 2. 56.25%
	✗ 3. 36%
	✗ 4. 64%

Question ID :	4410091151459
Option 1 ID :	4410094540775
Option 2 ID :	4410094540772
Option 3 ID :	4410094540773
Option 4 ID :	4410094540774

Q.11	5% वार्षिक ब्याज दर पर 6 वर्ष के लिए उधार ली गई ₹3500 की राशि पर प्राप्त साधारण ब्याज (₹ में) ज्ञात कीजिए।
Ans	✗ 1. 1010
	✓ 2. 1050
	✗ 3. 1090
	✗ 4. 990

Question ID :	4410091151281
Option 1 ID :	4410094540063
Option 2 ID :	4410094540060
Option 3 ID :	4410094540061
Option 4 ID :	4410094540062

QuickSarkari.com | WhatsApp Channel | Telegram: t.me/quick_sarkari

Q.12	दो विद्यार्थी एक परीक्षा में शामिल हुए। उनमें से एक ने दूसरे से 6 अंक अधिक प्राप्त किए और उसके अंक उनके अंकों के योग के 56% थे। उनके द्वारा प्राप्त अंकों का योगफल कितना था?
Ans	✗ 1. 56
	✓ 2. 50
	✗ 3. 51
	✗ 4. 44

Question ID :	4410091151486
Option 1 ID :	4410094540883
Option 2 ID :	4410094540880
Option 3 ID :	4410094540881
Option 4 ID :	4410094540882

Q.13	13 संख्याओं का औसत 9 है। यदि प्रत्येक संख्या को 2 से गुणा किया जाए, तो नया औसत कितना होगा?
Ans	✓ 1. 18
	✗ 2. 9
	✗ 3. 13
	✗ 4. 2

Question ID :	4410091151558
Option 1 ID :	4410094541168
Option 2 ID :	4410094541169
Option 3 ID :	4410094541171
Option 4 ID :	4410094541170

Q.14	₹3,750 का 8% वार्षिक दर से 1 वर्ष में प्राप्त होने वाला मिश्रधन ज्ञात कीजिए जबकि ब्याज अर्धवार्षिक रूप से संयोजित होता है।
Ans	✗ 1. ₹4065
	✗ 2. ₹3824
	✓ 3. ₹4056
	✗ 4. ₹4000

Question ID :	4410091151701
Option 1 ID :	4410094541743
Option 2 ID :	4410094541741
Option 3 ID :	4410094541742
Option 4 ID :	4410094541740

Q.15	₹3500 की धनराशि पर 6% वार्षिक ब्याज दर से 2 वर्षों का देय साधारण ब्याज (₹ में) ज्ञात कीजिए।
Ans	✗ 1. 460
	✗ 2. 380
	✗ 3. 360
	✓ 4. 420

Question ID :	4410091151280
Option 1 ID :	4410094540057
Option 2 ID :	4410094540059
Option 3 ID :	4410094540058
Option 4 ID :	4410094540056

QuickSarkari.com | WhatsApp Channel | Telegram: t.me/quick_sarkari

Q.16	प्रथम 221 सम प्राकृत संख्याओं का औसत ज्ञात कीजिए।
Ans	✗ 1. 222.5
	✓ 2. 222
	✗ 3. 223
	✗ 4. 221.5

Question ID :	441009187059
Option 1 ID :	441009739090
Option 2 ID :	441009739088
Option 3 ID :	441009739091
Option 4 ID :	441009739089

Q.17	निम्नलिखित को सरल कीजिए। $[\{(160 \times 30 \div 2 + 8) \times 35\} \div 2408] \times \frac{3}{6}$
Ans	✗ 1. 14
	✗ 2. 19
	✗ 3. 8.5
	✓ 4. 17.5

Question ID :	4410091151174
Option 1 ID :	4410094539633
Option 2 ID :	4410094539634
Option 3 ID :	4410094539635
Option 4 ID :	4410094539632

Q.18	2019 में अमित की आय ₹25000 थी। उसे प्रत्येक वर्ष 30% की वेतन वृद्धि मिलती है। 2021 में उसकी आय (₹ में) कितनी थी?
Ans	✓ 1. 42250
	✗ 2. 40000
	✗ 3. 32500
	✗ 4. 25000

Question ID :	4410091151249
Option 1 ID :	4410094539932
Option 2 ID :	4410094539934
Option 3 ID :	4410094539933
Option 4 ID :	4410094539935

QuickSarkari.com | WhatsApp Channel | Telegram: t.me/quick_sarkari

Q.19	लक्ष्मण ने एक बैंक से 10% वार्षिक दर पर $1\frac{1}{2}$ वर्ष के लिए ₹72,000 उधार लिए। यदि ब्याज अर्धवार्षिक रूप से संयोजित होता है, तो $1\frac{1}{2}$ वर्ष बाद लक्ष्मण द्वारा देय कुल चक्रवृद्धि ब्याज ज्ञात कीजिए।
Ans	✗ 1. ₹19,143
	✗ 2. ₹13,419
	✗ 3. ₹14,139
	✓ 4. ₹11,349

Question ID :	4410091151702
Option 1 ID :	4410094541745
Option 2 ID :	4410094541746
Option 3 ID :	4410094541747
Option 4 ID :	4410094541744

Q.20	128, 256 और 448 का HCF ज्ञात कीजिए।
Ans	✓ 1. 64
	✗ 2. 96
	✗ 3. 32
	✗ 4. 128

Question ID :	4410091151682
Option 1 ID :	4410094541667
Option 2 ID :	4410094541664
Option 3 ID :	4410094541665
Option 4 ID :	4410094541666

Section : **Arithmetical and Numerical Ability1**

Q.1	P और Q मिलकर एक टंकी को 24 घंटे में पानी से पूर्णतः भर सकते हैं। यदि P अकेले, टंकी को 60 घंटे में पानी से पूर्णतः भर सकता है, तो Q अकेले उसी टंकी का $\frac{3}{4}$ भाग कितने घंटों में पानी से भरेगा?
Ans	✗ 1. 60
	✓ 2. 30
	✗ 3. 31
	✗ 4. 61

Question ID :	4410091151304
Option 1 ID :	4410094540153
Option 2 ID :	4410094540152
Option 3 ID :	4410094540154
Option 4 ID :	4410094540155

QuickSarkari.com | WhatsApp Channel | Telegram: t.me/quick_sarkari

Q.2	एक व्यक्ति स्थान A से B तक 4 km/h की चाल से जाता है और उसी मार्ग का उपयोग करते हुए स्थान B से A तक 5 km/h की चाल से लौट आता है। पूरी यात्रा में उसकी औसत चाल (km/h में) कितनी है?
Ans	✗ 1. $11\frac{4}{9}$
	✗ 2. $13\frac{4}{9}$
	✓ 3. $4\frac{4}{9}$
	✗ 4. $2\frac{4}{9}$

Question ID :	4410091151124
Option 1 ID :	4410094539434
Option 2 ID :	4410094539433
Option 3 ID :	4410094539432
Option 4 ID :	4410094539435

Q.3	A और B क्रमशः बिंदु X और Y से एक ही समय पर एक-दूसरे की ओर चलना शुरू करते हैं। रास्ते में वे किसी बिंदु पर मिलते हैं। मिलने के बाद, A को बिंदु Y तक पहुंचने में 99.9 घंटे लगते हैं, और B को बिंदु X तक पहुंचने में p घंटे लगते हैं। यदि B की चाल, A की चाल से 50% अधिक है, तो p का मान ज्ञात कीजिए।
Ans	✗ 1. 64.2
	✗ 2. 66.6
	✓ 3. 44.4
	✗ 4. 43.8

Question ID :	4410091151055
Option 1 ID :	4410094539158
Option 2 ID :	4410094539159
Option 3 ID :	4410094539156
Option 4 ID :	4410094539157

Q.4	P और Q मिलकर एक टंकी को 24 घंटे में पानी से पूर्णतः भर सकते हैं। यदि P अकेले टंकी को 48 घंटे में पानी से पूर्णतः भर सकता है, तो Q अकेले उसी टंकी का $\frac{3}{4}$ भाग कितने घंटों में पानी से भरेगा?
Ans	✗ 1. 73
	✗ 2. 37
	✓ 3. 36
	✗ 4. 72

Question ID :	4410091151306
Option 1 ID :	4410094540163
Option 2 ID :	4410094540162
Option 3 ID :	4410094540160
Option 4 ID :	4410094540161

QuickSarkari.com | WhatsApp Channel | Telegram: t.me/quick_sarkari

Q.5	रोहित और राहुल की वर्तमान आयु 5 : 4 के अनुपात में है। अब से 4 वर्ष बाद, उनकी आयु 6 : 5 के अनुपात में होगी। रोहित की वर्तमान आयु (वर्षों में) ज्ञात कीजिए।
Ans	✗ 1. 16
	✗ 2. 24
	✗ 3. 22
	✓ 4. 20

Question ID :	4410091151632
Option 1 ID :	4410094541466
Option 2 ID :	4410094541467
Option 3 ID :	4410094541464
Option 4 ID :	4410094541465

Q.6	दो पाइप A और B एक टंकी को क्रमशः 24 घंटे और 40 घंटे में भर सकते हैं। यदि दोनों पाइपों को एक साथ खोल दिया जाए, तो टंकी को भरने में लगने वाला समय (घंटे में) ज्ञात कीजिए।
Ans	✗ 1. 18
	✓ 2. 15
	✗ 3. 17
	✗ 4. 16

Question ID :	4410091151334
Option 1 ID :	4410094540275
Option 2 ID :	4410094540272
Option 3 ID :	4410094540274
Option 4 ID :	4410094540273

Q.7	राम और श्याम की मासिक आय का अनुपात 8 : 7 है और मासिक व्यय का अनुपात 5 : 4 है। यदि वे क्रमशः ₹1,500 और ₹2,100 बचाते हैं, तो श्याम की मासिक आय ज्ञात कीजिए।
Ans	✗ 1. ₹8,000
	✗ 2. ₹13,500
	✓ 3. ₹10,500
	✗ 4. ₹12,000

Question ID :	4410091151628
Option 1 ID :	4410094541448
Option 2 ID :	4410094541451
Option 3 ID :	4410094541449
Option 4 ID :	4410094541450

Q.8	दो पाइप A और B एक टंकी को क्रमशः 22 घंटे और 99 घंटे में भर सकते हैं। यदि दोनों पाइप एक साथ खोले जाते हैं, तो टंकी को भरने में लगने वाला समय (घंटे में) ज्ञात कीजिए।
Ans	✗ 1. 19
	✓ 2. 18
	✗ 3. 21
	✗ 4. 20

Question ID :	4410091151338
Option 1 ID :	4410094540289
Option 2 ID :	4410094540288
Option 3 ID :	4410094540291
Option 4 ID :	4410094540290

Q.9	एक व्यक्ति स्थान A से B तक 4 km/h की चाल से जाता है और समान मार्ग का उपयोग करते हुए स्थान B से A तक 13 km/h की चाल से लौट आता है। पूरी यात्रा में उसकी औसत चाल (km/h में) कितनी है?
Ans	✗ 1. $5\frac{2}{17}$
	✗ 2. $1\frac{2}{17}$
	✓ 3. $6\frac{2}{17}$
	✗ 4. $7\frac{2}{17}$

Question ID :	4410091151123
Option 1 ID :	4410094539429
Option 2 ID :	4410094539430
Option 3 ID :	4410094539428
Option 4 ID :	4410094539431

Q.10	6% और 4% की दो क्रमागत छूटों के समतुल्य एकल छूट ज्ञात कीजिए।
Ans	✗ 1. 9.024%
	✗ 2. 97.6%
	✓ 3. 9.76%
	✗ 4. 90.24%

Question ID :	441009250203
Option 1 ID :	441009974549
Option 2 ID :	441009974550
Option 3 ID :	441009974548
Option 4 ID :	441009974547

Q.11	दो संख्याएँ 3 : 7 के अनुपात में हैं। जब उनमें से प्रत्येक में 8 जोड़ा जाता है तो उनका अनुपात 5 : 9 हो जाता है। दोनों संख्याएँ ज्ञात कीजिए।
Ans	✓ 1. 12, 28
	✗ 2. 15, 35
	✗ 3. 9, 21
	✗ 4. 6, 14

Question ID :	4410091151619
Option 1 ID :	4410094541413
Option 2 ID :	4410094541412
Option 3 ID :	4410094541414
Option 4 ID :	4410094541415

QuickSarkari.com | WhatsApp Channel | Telegram: t.me/quick_sarkari

Q.12	एक आयताकार मैदान की एक भुजा 8 cm है और इसका एक विकर्ण 17 cm है। इस मैदान का क्षेत्रफल ज्ञात कीजिए।
Ans	✗ 1. 110 cm^2
	✓ 2. 120 cm^2
	✗ 3. 100 cm^2
	✗ 4. 130 cm^2

Question ID :	4410091116366
Option 1 ID :	4410094401357
Option 2 ID :	4410094401358
Option 3 ID :	4410094401356
Option 4 ID :	4410094401359

Q.13	एक बेड का विक्रय मूल्य, उसके प्रारंभिक विक्रय मूल्य का 7 गुना हो जाने पर लाभ, प्रारंभिक लाभ का 8 गुना हो जाता है। प्रारंभिक लाभ प्रतिशत (% में) ज्ञात कीजिए।
Ans	✓ 1. 600
	✗ 2. 14.28
	✗ 3. 87.5
	✗ 4. 114.28

Question ID :	4410091151416
Option 1 ID :	4410094540600
Option 2 ID :	4410094540601
Option 3 ID :	4410094540603
Option 4 ID :	4410094540602

Q.14	एक वस्तु को 30% लाभ पर ₹63,349 में बेचा जाता है। यदि लाभ 40% है, तो वस्तु का विक्रय मूल्य (₹ में) कितना होगा?
Ans	✓ 1. 68,222
	✗ 2. 48,730
	✗ 3. 63,359
	✗ 4. 62,833

Question ID :	4410091151636
Option 1 ID :	4410094541481
Option 2 ID :	4410094541480
Option 3 ID :	4410094541482
Option 4 ID :	4410094541483

Q.15	एक टैक्सी स्टैंड से दो टैक्सियां 54 km/h की चाल से एक ही दिशा में चलती हैं, उनके प्रस्थानों के बीच 49 मिनट का अंतराल है। विपरीत दिशा से बाइक चला रहा एक व्यक्ति, दोनों टैक्सियों से 36 मिनट के अंतराल पर मिलता है। बाइक पर सवार व्यक्ति की चाल (km/h में) कितनी है?
Ans	✗ 1. 21.1
	✗ 2. 25.6
	✓ 3. 19.5
	✗ 4. 17.5

Question ID :	4410091151057
Option 1 ID :	4410094539165
Option 2 ID :	4410094539166
Option 3 ID :	4410094539164
Option 4 ID :	4410094539167

Q.16	P, Q और R ने एक व्यवसाय में $\frac{1}{3} : \frac{1}{5} : \frac{1}{6}$ के अनुपात में धनराशि निवेश की। शुरुआत से 7 माह बाद, P ने अपने निवेश को तिगुना कर दिया। शुरुआत से 6 माह बाद, Q ने अपने निवेश को दोगुना कर दिया। शुरुआत से 8 माह बाद, R ने अपने निवेश को आधा कर दिया। यदि वर्ष के अंत में कुल लाभ ₹82,450 प्राप्त हुआ, तो लाभ में Q का हिस्सा ज्ञात कीजिए। (अपने उत्तर को निकटतम पूर्णांक तक पूर्णांकित कीजिए)
Ans	✗ 1. ₹22,950
	✗ 2. ₹21,580
	✓ 3. ₹23,557
	✗ 4. ₹23,685

Question ID :	4410091151442
Option 1 ID :	4410094540706
Option 2 ID :	4410094540705
Option 3 ID :	4410094540704
Option 4 ID :	4410094540707

Q.17	एक इमारत का गुंबद अर्धगोले के आकार का है। अंदर से इसकी सफेदी ₹83.16 की लागत पर की गई। यदि सफेदी की लागत ₹3/m^2 है, तो गुंबद के अंदर वायु का आयतन दशमलव के दो स्थानों तक ज्ञात कीजिए। ($\pi = \frac{22}{7}$ का उपयोग कीजिए)
Ans	✗ 1. 14.90 m^3
	✗ 2. 14.09 m^3
	✗ 3. 19.04 m^3
	✓ 4. 19.40 m^3

Question ID :	4410091116346
Option 1 ID :	4410094401279
Option 2 ID :	4410094401277
Option 3 ID :	4410094401278
Option 4 ID :	4410094401276

Q.18	यदि एक बेड का विक्रय मूल्य, प्रारंभिक विक्रय मूल्य का 6 गुना है, तो लाभ प्रारंभिक लाभ का 7 गुना है। प्रारंभिक लाभ प्रतिशत (% में) ज्ञात कीजिए।
Ans	✓ 1. 500
	✗ 2. 85
	✗ 3. 16.67
	✗ 4. 116.67

Question ID :	4410091151421
Option 1 ID :	4410094540620
Option 2 ID :	4410094540623
Option 3 ID :	4410094540621
Option 4 ID :	4410094540622

QuickSarkari.com | WhatsApp Channel | Telegram: t.me/quick_sarkari

Q.19	**A glass tumbler is made by removing one-third of the height of a cone from the vertex. If the original cone has a base with a radius of 3 cm and vertical height of 6 cm, then the volume of water the glass can hold is:**
Ans	✔ 1. $\frac{52\pi}{3}$ cc
	✘ 2. 10π cc
	✘ 3. 5π cc
	✘ 4. $\frac{50\pi}{3}$ cc

Question ID :	**4410091116357**
Option 1 ID :	**4410094401320**
Option 2 ID :	**4410094401323**
Option 3 ID :	**4410094401322**
Option 4 ID :	**4410094401321**

Q.20	**एक शंक्वाकार बर्तन का आयतन निश्चित है। यदि इसकी ऊँचाई और त्रिज्या को आपस में बदल दिया जाए, तो शंकु का आयतन दोगुना हो जाता है। प्रारंभ में शंकु की ऊँचाई और आधार के व्यास का अनुपात क्या था?**
Ans	✘ 1. 3:2
	✘ 2. 2:1
	✘ 3. 1:2
	✔ 4. 1:1

Question ID :	**4410091116345**
Option 1 ID :	**4410094401275**
Option 2 ID :	**4410094401274**
Option 3 ID :	**4410094401273**
Option 4 ID :	**4410094401272**

Section : **Test of English Language and Comprehension**

Q.1	**Select the most appropriate option to fill in the blank.** **Shaina's baby was asleep when _____ news came.**
Ans	✘ 1. a
	✘ 2. No article
	✘ 3. an
	✔ 4. the

Question ID :	**4410091102261**
Option 1 ID :	**4410094346405**
Option 2 ID :	**4410094346403**
Option 3 ID :	**4410094346404**
Option 4 ID :	**4410094346402**

QuickSarkari.com | WhatsApp Channel | Telegram: t.me/quick_sarkari

Q.2	**Select the most appropriate option to fill in the blank.** **To our relief, _____ Honourable Chief Minister arrived at the venue of the event on time.**
Ans	✗ 1. No article
	✗ 2. an
	✓ 3. the
	✗ 4. a

Question ID :	**4410091102257**
Option 1 ID :	**4410094346387**
Option 2 ID :	**4410094346389**
Option 3 ID :	**4410094346388**
Option 4 ID :	**4410094346386**

Q.3	**Select the most appropriate option to fill in the blank.** **Wow! Look at ____ morning sky, Shikha!**
Ans	✗ 1. a
	✗ 2. an
	✓ 3. the
	✗ 4. No article

Question ID :	**4410091102256**
Option 1 ID :	**4410094346382**
Option 2 ID :	**4410094346385**
Option 3 ID :	**4410094346383**
Option 4 ID :	**4410094346384**

Q.4	**Select the most appropriate adjective to fill in the blank.** **Dr.Vishnu provided _____ support to his students who were struggling with their academics.**
Ans	✗ 1. decent
	✗ 2. deep
	✗ 3. easy
	✓ 4. dedicated

Question ID :	**4410091102179**
Option 1 ID :	**4410094346076**
Option 2 ID :	**4410094346074**
Option 3 ID :	**4410094346077**
Option 4 ID :	**4410094346075**

Q.5	**Select the most appropriate adjective to fill in the blank.** **Hari packed _____ snacks for the long trip, ensuring we wouldn't go hungry.**
Ans	✗ 1. big
	✗ 2. clean
	✓ 3. ample
	✗ 4. cheap

Question ID :	**4410091102180**
Option 1 ID :	**4410094346079**
Option 2 ID :	**4410094346080**
Option 3 ID :	**4410094346078**
Option 4 ID :	**4410094346081**

QuickSarkari.com | WhatsApp Channel | Telegram: t.me/quick_sarkari

Q.6	**Select the most appropriate preposition to fill in the blank.** **Sarala is fond _____ chocolates.**
Ans	✗ 1. by
	✓ 2. of
	✗ 3. with
	✗ 4. at

Question ID :	**441009498576**
Option 1 ID :	**4410091949519**
Option 2 ID :	**4410091949518**
Option 3 ID :	**4410091949516**
Option 4 ID :	**4410091949517**

Q.7	**Select the most appropriate option to fill in the blank.** **Although her argument was well-structured and prepared, it failed to address certain key factors and was therefore _____ unconvincing.**
Ans	✗ 1. somewhat
	✗ 2. vaguely
	✓ 3. altogether
	✗ 4. all together

Question ID :	**4410094683**
Option 1 ID :	**44100918612**
Option 2 ID :	**44100918613**
Option 3 ID :	**44100918610**
Option 4 ID :	**44100918611**

Q.8	**Select the most appropriate option to fill in the blank.** **Growing up in ____ west of Delhi, Mona already stood out among her French friends.**
Ans	✓ 1. the
	✗ 2. No article
	✗ 3. a
	✗ 4. an

Question ID :	**4410091102265**
Option 1 ID :	**4410094346420**
Option 2 ID :	**4410094346421**
Option 3 ID :	**4410094346418**
Option 4 ID :	**4410094346419**

Q.9	**Select the most appropriate option to fill in the blank.** **She usually _____ her homework before dinner.**
Ans	✗ 1. done
	✗ 2. do
	✗ 3. didn't
	✓ 4. does

Question ID :	**44100998728**
Option 1 ID :	**441009393010**
Option 2 ID :	**441009393007**
Option 3 ID :	**441009393009**
Option 4 ID :	**441009393008**

QuickSarkari.com | WhatsApp Channel | Telegram: t.me/quick_sarkari

Q.10	**Select the most appropriate option to fill in the blank.** **The author ____ a compelling argument, supported by extensive research.**
Ans	✔ 1. presented
	✘ 2. has present
	✘ 3. is being presented
	✘ 4. has been presented

Question ID :	**441009109971**
Option 1 ID :	**441009437462**
Option 2 ID :	**441009437464**
Option 3 ID :	**441009437463**
Option 4 ID :	**441009437461**

	Comprehension:
	Read the passage and answer the questions that follow. In the vast realm of quantum mechanics, the concept of entanglement has intrigued physicists for decades. Entanglement occurs when two or more particles become correlated in such a way that the state of one particle instantly influences the state of the other, regardless of the distance between them. This phenomenon challenges our classical understanding of physics, as it suggests a form of interconnectedness that defies traditional notions of space and time. Recent experiments have delved into the intricacies of entanglement, revealing its potential applications in quantum computing and communication. Scientists have harnessed the delicate dance of entangled particles to create qubits, the fundamental units of quantum information. Quantum entanglement not only promises revolutionary advancements in technology but also raises profound questions about the nature of reality itself.
	SubQuestion No : 11
Q.11	**What is entanglement in quantum mechanics?**
Ans	✘ 1. Magnetic resonance
	✘ 2. Particle collision
	✘ 3. Wave-particle duality
	✔ 4. Correlation of particle states

Question ID :	**4410091111176**
Option 1 ID :	**4410094381384**
Option 2 ID :	**4410094381382**
Option 3 ID :	**4410094381385**
Option 4 ID :	**4410094381383**

QuickSarkari.com | WhatsApp Channel | Telegram: t.me/quick_sarkari

	Comprehension:
	Read the passage and answer the questions that follow. In the vast realm of quantum mechanics, the concept of entanglement has intrigued physicists for decades. Entanglement occurs when two or more particles become correlated in such a way that the state of one particle instantly influences the state of the other, regardless of the distance between them. This phenomenon challenges our classical understanding of physics, as it suggests a form of interconnectedness that defies traditional notions of space and time. Recent experiments have delved into the intricacies of entanglement, revealing its potential applications in quantum computing and communication. Scientists have harnessed the delicate dance of entangled particles to create qubits, the fundamental units of quantum information. Quantum entanglement not only promises revolutionary advancements in technology but also raises profound questions about the nature of reality itself.

	SubQuestion No : 12
Q.12	**What is the significance of entanglement in quantum computing?**
Ans	✗ 1. Classical information processing
	✓ 2. Creation of qubits
	✗ 3. Faster data transmission
	✗ 4. Enhanced energy storage

Question ID :	**4410091111177**
Option 1 ID :	**4410094381389**
Option 2 ID :	**4410094381388**
Option 3 ID :	**4410094381386**
Option 4 ID :	**4410094381387**

	Comprehension:
	Read the passage and answer the questions that follow. In the vast realm of quantum mechanics, the concept of entanglement has intrigued physicists for decades. Entanglement occurs when two or more particles become correlated in such a way that the state of one particle instantly influences the state of the other, regardless of the distance between them. This phenomenon challenges our classical understanding of physics, as it suggests a form of interconnectedness that defies traditional notions of space and time. Recent experiments have delved into the intricacies of entanglement, revealing its potential applications in quantum computing and communication. Scientists have harnessed the delicate dance of entangled particles to create qubits, the fundamental units of quantum information. Quantum entanglement not only promises revolutionary advancements in technology but also raises profound questions about the nature of reality itself.

	SubQuestion No : 13
Q.13	**Which of the following notions are challenged by the concept of entanglement?**
Ans	✗ 1. Newton's laws
	✗ 2. Einstein's theory of relativity
	✓ 3. Traditional notions of space and time
	✗ 4. Wave-particle duality

Question ID :	**4410091111178**
Option 1 ID :	**4410094381390**
Option 2 ID :	**4410094381391**
Option 3 ID :	**4410094381393**
Option 4 ID :	**4410094381392**

	Comprehension:
	Read the passage and answer the questions that follow. In the vast realm of quantum mechanics, the concept of entanglement has intrigued physicists for decades. Entanglement occurs when two or more particles become correlated in such a way that the state of one particle instantly influences the state of the other, regardless of the distance between them. This phenomenon challenges our classical understanding of physics, as it suggests a form of interconnectedness that defies traditional notions of space and time. Recent experiments have delved into the intricacies of entanglement, revealing its potential applications in quantum computing and communication. Scientists have harnessed the delicate dance of entangled particles to create qubits, the fundamental units of quantum information. Quantum entanglement not only promises revolutionary advancements in technology but also raises profound questions about the nature of reality itself.

	SubQuestion No : 14
Q.14	**Select the most appropriate synonym of the given word.** **Entanglement**
Ans	✗ 1. Crossword
	✗ 2. Dissociation
	✓ 3. Enmeshment
	✗ 4. Confused

Question ID :	**4410091111179**
Option 1 ID :	**4410094381395**
Option 2 ID :	**4410094381394**
Option 3 ID :	**4410094381396**
Option 4 ID :	**4410094381397**

	Comprehension:
	Read the passage and answer the questions that follow. In the vast realm of quantum mechanics, the concept of entanglement has intrigued physicists for decades. Entanglement occurs when two or more particles become correlated in such a way that the state of one particle instantly influences the state of the other, regardless of the distance between them. This phenomenon challenges our classical understanding of physics, as it suggests a form of interconnectedness that defies traditional notions of space and time. Recent experiments have delved into the intricacies of entanglement, revealing its potential applications in quantum computing and communication. Scientists have harnessed the delicate dance of entangled particles to create qubits, the fundamental units of quantum information. Quantum entanglement not only promises revolutionary advancements in technology but also raises profound questions about the nature of reality itself.

	SubQuestion No : 15
Q.15	**What potential advancements does quantum entanglement promise?**
Ans	✗ 1. Faster internet speeds
	✓ 2. Advancements in technology and quantum computing
	✗ 3. Greater energy efficiency
	✗ 4. Improved classical computing

Question ID :	**4410091111180**
Option 1 ID :	**4410094381400**
Option 2 ID :	**4410094381398**
Option 3 ID :	**4410094381401**
Option 4 ID :	**4410094381399**

Comprehension:

Read the given passage and answer the questions that follow.

In recent years, urban gardening has emerged as a powerful movement in cities around the world. As space becomes increasingly limited in densely populated areas, citizens have begun transforming rooftops, balconies and even abandoned lots into thriving green spaces. This trend not only brings aesthetic value to the urban landscape but also addresses critical issues such as food security and mental well-being.

Many urban dwellers grow their own herbs, vegetables and fruits, reducing their dependence on commercial supply chains. This not only ensures fresher produce but also promotes sustainable living. In addition, participating in gardening activities has been linked to reduced stress levels, improved mood and increased physical activity. Community gardens, in particular, have become hubs for social interaction, fostering a sense of unity and shared responsibility among neighbours.

However, the movement is not without its challenges. Limited access to sunlight, water supply and suitable soil can hinder progress. Moreover, not everyone has the knowledge or resources to maintain a successful garden. Despite these obstacles, the benefits of urban gardening have encouraged many local governments and organisations to offer support through workshops, subsidies and awareness campaigns.

As cities continue to grow and climate concerns rise, urban gardening offers a hopeful and practical solution for greener, healthier and more connected communities.

SubQuestion No : 16

Q.16 **Select the most appropriate title for the given passage.**

Ans

✔ 1. Urban Gardening: A Modern Solution

✗ 2. Gardening Techniques for Experts

✗ 3. The Art of Traditional Farming

✗ 4. The Downside of Urban Growth

Question ID :	**441009465860**
Option 1 ID :	**4410091822039**
Option 2 ID :	**4410091822040**
Option 3 ID :	**4410091822038**
Option 4 ID :	**4410091822037**

QuickSarkari.com | WhatsApp Channel | Telegram: t.me/quick_sarkari

Comprehension:

Read the given passage and answer the questions that follow.

In recent years, urban gardening has emerged as a powerful movement in cities around the world. As space becomes increasingly limited in densely populated areas, citizens have begun transforming rooftops, balconies and even abandoned lots into thriving green spaces. This trend not only brings aesthetic value to the urban landscape but also addresses critical issues such as food security and mental well-being.

Many urban dwellers grow their own herbs, vegetables and fruits, reducing their dependence on commercial supply chains. This not only ensures fresher produce but also promotes sustainable living. In addition, participating in gardening activities has been linked to reduced stress levels, improved mood and increased physical activity. Community gardens, in particular, have become hubs for social interaction, fostering a sense of unity and shared responsibility among neighbours.

However, the movement is not without its challenges. Limited access to sunlight, water supply and suitable soil can hinder progress. Moreover, not everyone has the knowledge or resources to maintain a successful garden. Despite these obstacles, the benefits of urban gardening have encouraged many local governments and organisations to offer support through workshops, subsidies and awareness campaigns.

As cities continue to grow and climate concerns rise, urban gardening offers a hopeful and practical solution for greener, healthier and more connected communities.

SubQuestion No : 17

Q.17 What is the tone of the passage?

Ans

✗ 1. Indifferent

✗ 2. Humorous

✗ 3. Critical

✓ 4. Optimistic

Question ID :	**441009465861**
Option 1 ID :	**4410091822041**
Option 2 ID :	**4410091822044**
Option 3 ID :	**4410091822042**
Option 4 ID :	**4410091822043**

QuickSarkari.com | WhatsApp Channel | Telegram: t.me/quick_sarkari

Comprehension:

Read the given passage and answer the questions that follow.

In recent years, urban gardening has emerged as a powerful movement in cities around the world. As space becomes increasingly limited in densely populated areas, citizens have begun transforming rooftops, balconies and even abandoned lots into thriving green spaces. This trend not only brings aesthetic value to the urban landscape but also addresses critical issues such as food security and mental well-being.

Many urban dwellers grow their own herbs, vegetables and fruits, reducing their dependence on commercial supply chains. This not only ensures fresher produce but also promotes sustainable living. In addition, participating in gardening activities has been linked to reduced stress levels, improved mood and increased physical activity. Community gardens, in particular, have become hubs for social interaction, fostering a sense of unity and shared responsibility among neighbours.

However, the movement is not without its challenges. Limited access to sunlight, water supply and suitable soil can hinder progress. Moreover, not everyone has the knowledge or resources to maintain a successful garden. Despite these obstacles, the benefits of urban gardening have encouraged many local governments and organisations to offer support through workshops, subsidies and awareness campaigns.

As cities continue to grow and climate concerns rise, urban gardening offers a hopeful and practical solution for greener, healthier and more connected communities.

SubQuestion No : 18

Q.18 **According to the passage, what are the two main benefits of urban gardening?**

Ans

✔ 1. Fresher produce and reduced stress

✗ 2. Reduced rent and increased wages

✗ 3. Cheaper electricity and faster transport

✗ 4. Better education and lower taxes

Question ID :	**441009465862**
Option 1 ID :	**4410091822046**
Option 2 ID :	**4410091822047**
Option 3 ID :	**4410091822045**
Option 4 ID :	**4410091822048**

QuickSarkari.com | WhatsApp Channel | Telegram: t.me/quick_sarkari

Comprehension:

Read the given passage and answer the questions that follow.

In recent years, urban gardening has emerged as a powerful movement in cities around the world. As space becomes increasingly limited in densely populated areas, citizens have begun transforming rooftops, balconies and even abandoned lots into thriving green spaces. This trend not only brings aesthetic value to the urban landscape but also addresses critical issues such as food security and mental well-being.

Many urban dwellers grow their own herbs, vegetables and fruits, reducing their dependence on commercial supply chains. This not only ensures fresher produce but also promotes sustainable living. In addition, participating in gardening activities has been linked to reduced stress levels, improved mood and increased physical activity. Community gardens, in particular, have become hubs for social interaction, fostering a sense of unity and shared responsibility among neighbours.

However, the movement is not without its challenges. Limited access to sunlight, water supply and suitable soil can hinder progress. Moreover, not everyone has the knowledge or resources to maintain a successful garden. Despite these obstacles, the benefits of urban gardening have encouraged many local governments and organisations to offer support through workshops, subsidies and awareness campaigns.

As cities continue to grow and climate concerns rise, urban gardening offers a hopeful and practical solution for greener, healthier and more connected communities.

SubQuestion No : 19

Q.19 **What is a challenge mentioned in the passage that urban gardeners often face?**

Ans

✗ 1. Government restrictions on plant types

✓ 2. Lack of sunlight and proper soil

✗ 3. Invasion by wild animals

✗ 4. Overproduction of crops

Question ID :	**441009465863**
Option 1 ID :	**4410091822049**
Option 2 ID :	**4410091822051**
Option 3 ID :	**4410091822052**
Option 4 ID :	**4410091822050**

QuickSarkari.com | WhatsApp Channel | Telegram: t.me/quick_sarkari

Comprehension:

Read the given passage and answer the questions that follow.

In recent years, urban gardening has emerged as a powerful movement in cities around the world. As space becomes increasingly limited in densely populated areas, citizens have begun transforming rooftops, balconies and even abandoned lots into thriving green spaces. This trend not only brings aesthetic value to the urban landscape but also addresses critical issues such as food security and mental well-being.

Many urban dwellers grow their own herbs, vegetables and fruits, reducing their dependence on commercial supply chains. This not only ensures fresher produce but also promotes sustainable living. In addition, participating in gardening activities has been linked to reduced stress levels, improved mood and increased physical activity. Community gardens, in particular, have become hubs for social interaction, fostering a sense of unity and shared responsibility among neighbours.

However, the movement is not without its challenges. Limited access to sunlight, water supply and suitable soil can hinder progress. Moreover, not everyone has the knowledge or resources to maintain a successful garden. Despite these obstacles, the benefits of urban gardening have encouraged many local governments and organisations to offer support through workshops, subsidies and awareness campaigns.

As cities continue to grow and climate concerns rise, urban gardening offers a hopeful and practical solution for greener, healthier and more connected communities.

SubQuestion No : 20

Q.20 Select the most appropriate ANTONYM of the word 'thriving' as used in the given passage.

Ans
✗ 1. Prosperous
✗ 2. Growing
✗ 3. Flourishing
✓ 4. Withering

Question ID :	**4410094658 64**
Option 1 ID :	**4410091822054**
Option 2 ID :	**4410091822056**
Option 3 ID :	**4410091822053**
Option 4 ID :	**4410091822055**

Section : **Test of English Language and Comprehension1**

Q.1 Select the most appropriate homonym to fill in the blank.

As the team members gathered at the base of the mountain, they gave their unanimous _____ to attempt the challenging _____ ahead.

Ans
✗ 1. assent; assent
✗ 2. ascent; ascent
✓ 3. assent; ascent
✗ 4. ascent; assent

Question ID :	**4410091104170**
Option 1 ID :	**4410094354039**
Option 2 ID :	**4410094354040**
Option 3 ID :	**4410094354041**
Option 4 ID :	**4410094354038**

QuickSarkari.com | WhatsApp Channel | Telegram: t.me/quick_sarkari

Q.2	**Select the most appropriate meaning of the given idiom.** **When hell freezes over**
Ans	✔ 1. Something that never happens
	✘ 2. A place which becomes frozen unexpectedly
	✘ 3. Once when everything freezes
	✘ 4. Someone who never comes

Question ID :	**4410092934**
Option 1 ID :	**44100911775**
Option 2 ID :	**44100911774**
Option 3 ID :	**44100911773**
Option 4 ID :	**44100911772**

Q.3	**Sentences of a paragraph are given below in jumbled order. Arrange the sentences in the correct order to form a meaningful and coherent paragraph.** **A: On the other hand, much of the canvassing, of which the consumer is the object, does not convey information but endeavours merely to draw the public attention to certain products.** **B: The advertiser's assumption is that by looking at such pictures, the consumer would be influenced to buy his products.** **C: Advertising is also advantageous to the consumers, if it increases the sale of goods, industry prospers, and prices may be reduced.** **D: There is no obvious connection, for example, between a picture of a smiling girl and a certain brand sweet.** **E: But most people like looking at the pictures of pretty girls.**
Ans	✘ 1. BDECA
	✔ 2. CADEB
	✘ 3. EBADC
	✘ 4. DCEBA

Question ID :	**4410097349**
Option 1 ID :	**44100929136**
Option 2 ID :	**44100929139**
Option 3 ID :	**44100929137**
Option 4 ID :	**44100929138**

Q.4	**Select the most appropriate ANTONYM of the highlighted word in the given sentence.** **The lawyer worked hard to ensure the tenability of his case in court.**
Ans	✘ 1. Pervious
	✘ 2. Unprepared
	✔ 3. Indefensible
	✘ 4. Tactical

Question ID :	**441009993648**
Option 1 ID :	**4410093926680**
Option 2 ID :	**4410093926682**
Option 3 ID :	**4410093926681**
Option 4 ID :	**4410093926679**

QuickSarkari.com | WhatsApp Channel | Telegram: t.me/quick_sarkari

Q.5	Sentences of a paragraph are given below in jumbled order. Arrange the sentences in the correct order to form a meaningful and coherent paragraph. A) Reading books enhances knowledge and broadens perspectives. B) It also improves vocabulary and communication skills. C) Developing a habit of reading daily has several benefits. D) Additionally, it fosters creativity and critical thinking.
Ans	✗ 1. CBAD
	✗ 2. ACBD
	✓ 3. CABD
	✗ 4. BCAD

Question ID :	44100917546
Option 1 ID :	44100970036
Option 2 ID :	44100970035
Option 3 ID :	44100970037
Option 4 ID :	44100970038

Q.6	Select the most appropriate option that can be used as a one-word substitute for the underlined segment in the given paragraph. 'The Tiger' was attacked and looted by pirates near Somalia. Their ship was called ' The Dark Abyss'. Red Beard was its captain. After looting "The Tiger', Red Beard was making his way to safer ports. Fate did not seem to be in his favour. His ship encountered a violent sea storm and after being violently tossed and battered by massive waves,' The Dark Abyss' was wrecked.
Ans	✗ 1. tsunami
	✓ 2. tempest
	✗ 3. tornado
	✗ 4. lagoon

Question ID :	4410092340
Option 1 ID :	4410099407
Option 2 ID :	4410099406
Option 3 ID :	4410099405
Option 4 ID :	4410099408

Q.7	Sentences of a paragraph are given below in jumbled order. Arrange the sentences in the correct order to form a meaningful and coherent paragraph. A- While the Budget sets a lower nominal gross domestic product (GDP) growth target of 14%, we believe that the real GDP growth target of 9% factored in the Budget is on the optimistic side. B- Additionally, there was an expectation that the government would restart the reform process. C- The Budget has made an attempt to address all these issues, albeit through small steps. D- The three key macroeconomic concerns before the Union Budget 2011-12 were high inflation, high current account deficit (CAD), and fiscal consolidation. E- Despite the strong performance of the economy in 2010-11, the outlook for 2011-12 is clouded by stubborn and persistently high inflation, and rising external risks.
Ans	✗ 1. DBCEA
	✗ 2. BDECA
	✓ 3. EDBCA
	✗ 4. BDCEA

Question ID :	4410097351
Option 1 ID :	44100929147
Option 2 ID :	44100929144
Option 3 ID :	44100929145
Option 4 ID :	44100929146

Q.8	**Select the most appropriate idiom for the given group of words.** **To have a problem that you cannot solve or get rid of easily**
Ans	✗ 1. Beat a dead horse
	✓ 2. Having a monkey on your back
	✗ 3. A penny for your thoughts
	✗ 4. Walk on eggshells

Question ID :	**4410091104033**
Option 1 ID :	**4410094353493**
Option 2 ID :	**4410094353491**
Option 3 ID :	**4410094353492**
Option 4 ID :	**4410094353490**

Q.9	**Select the most appropriate synonym of the highlighted word in the given sentence.** **The rebel's insurrection was swiftly quelled by the government.**
Ans	✗ 1. Defamation
	✓ 2. Uprising
	✗ 3. Termination
	✗ 4. Compliance

Question ID :	**441009113574**
Option 1 ID :	**441009451796**
Option 2 ID :	**441009451795**
Option 3 ID :	**441009451797**
Option 4 ID :	**441009451794**

Q.10	**Select the option that can be used as a one-word substitute for the given group of words.** **The act of intentionally avoiding something, especially due to moral or social reasons**
Ans	✗ 1. Abjuration
	✓ 2. Eschewal
	✗ 3. Renunciation
	✗ 4. Ostracism

Question ID :	**441009118988**
Option 1 ID :	**441009473071**
Option 2 ID :	**441009473073**
Option 3 ID :	**441009473074**
Option 4 ID :	**441009473072**

QuickSarkari.com | WhatsApp Channel | Telegram: t.me/quick_sarkari

Q.11	**Select the most appropriate option to fill in the blanks.** **She used a hearing ____ to improve her hearing, and her personal ___ assisted her with daily activities to ensure she lived comfortably.**
Ans	✗ 1. aid; aid
	✗ 2. aide; aid
	✗ 3. aide; aide
	✓ 4. aid; aide

Question ID :	**4410091104100**
Option 1 ID :	**4410094353760**
Option 2 ID :	**4410094353759**
Option 3 ID :	**4410094353761**
Option 4 ID :	**4410094353758**

Q.12	**Sentences of a paragraph are given below in jumbled order. Arrange the sentences in the correct order to form a meaningful and coherent paragraph.** **A- It unfolds in two sections: Climate change: how to make sense of it all.** **B- And natural resources how to share and care, however, they are introduced to students not as a paragraph to memorise but as an activity to do.** **C- Environment Education unit of Centre for Science and Environment has always been working towards providing easy to understand reading material.** **D- Their new publication on this subject is an attempt to lend teachers a helping hand.**
Ans	✗ 1. DBAC
	✓ 2. CDAB
	✗ 3. ACBD
	✗ 4. BDAC

Question ID :	**4410097344**
Option 1 ID :	**44100929118**
Option 2 ID :	**44100929116**
Option 3 ID :	**44100929119**
Option 4 ID :	**44100929117**

QuickSarkari.com | WhatsApp Channel | Telegram: t.me/quick_sarkari

Q.13	**Sentences of a paragraph are given below in jumbled order. Arrange the sentences in the correct order to form a meaningful and coherent paragraph.** **A. In fact, their findings revealed that many mummies had heart diseases. The Horus Group found that on CT scans, almost 38% of the mummies had the primary pathological evidence of atherosclerosis—deposits of calcium lining their aortas and other major arteries.** **B. They wanted to see if atherosclerosis, one of the leading causes of death in the world, is a disease of modernity, our high-stress, cholesterol-laden lifestyle or if it had been there all along.** **C. The Horus Group, named after the Egyptian god of healing, is an international team of cardiologists, archaeologists and radiologists who have studied more than 200 mummies in Egypt, Peru, the Aleutian Islands and Italy with computer tomography (CT) scans and genetic analyses.** **D. This was particularly striking because to be mummified, you had to be rich, powerful, a priest or a relative of the pharaoh, living a relatively lavish, sedentary lifestyle, and, according to hieroglyphic papyri, eating a lot of meat and suffering from cardiac symptoms.**
Ans	✔ 1. CBAD
	✘ 2. CABD
	✘ 3. CDBA
	✘ 4. CADB

Question ID :	**4410096312**
Option 1 ID :	**44100924999**
Option 2 ID :	**44100925001**
Option 3 ID :	**44100925000**
Option 4 ID :	**44100925002**

Q.14	**Select the most appropriate idiom for the given group of words.** **Be together always**
Ans	✔ 1. Like two peas in a pod
	✘ 2. A dime a dozen
	✘ 3. A chip off the old block
	✘ 4. Keep your chin up

Question ID :	**4410091104037**
Option 1 ID :	**4410094353506**
Option 2 ID :	**4410094353509**
Option 3 ID :	**4410094353507**
Option 4 ID :	**4410094353508**

QuickSarkari.com | WhatsApp Channel | Telegram: t.me/quick_sarkari

Q.15	**Sentences of a paragraph are given below in jumbled order. Arrange the sentences in the correct order to form a meaningful and coherent paragraph.** **A: We do not, then, limit our thinking to our own caste or religion but think about all our fellow citizens.** **B: This feeling of an extensive group gives rise to a fellow feeling, a feeling of brotherhood amongst the citizens.** **C: This feeling takes up beyond the bounds of family, caste, religion as well as region and helps us to develop a broad perspective that all of us together constitute an extensive group called 'the nation'.** **D: National integration is the feeling among all the citizens of a country that they all are part of one nation.**
Ans	✗ 1. BDAC
	✗ 2. BACD
	✗ 3. CBAD
	✓ 4. DCBA

Question ID :	**4410097355**
Option 1 ID :	**44100929162**
Option 2 ID :	**44100929161**
Option 3 ID :	**44100929163**
Option 4 ID :	**44100929160**

Q.16	**Select the most appropriate one-word substitute of the highlighted segment in the given sentence.** **To analyse Prose, understanding a writer's style is crucial. A key characteristic to identify is the act of talking at length in a pompous or boastful way. Recognising instances of this can reveal a character's arrogance or a narrator's critical perspective on a subject.**
Ans	✓ 1. grandiloquence
	✗ 2. verbosity
	✗ 3. circumlocution
	✗ 4. rhetoric

Question ID :	**441009113424**
Option 1 ID :	**441009451204**
Option 2 ID :	**441009451203**
Option 3 ID :	**441009451206**
Option 4 ID :	**441009451205**

Q.17	**Select the most appropriate option that can substitute the underlined words in the given sentence.** **The restaurant owner tried to transform his poorly trained staff and outdated kitchen into a fine-dining establishment, but critics soon pointed out that it seemed impossible to turn into something attractive.**
Ans	✓ 1. you can't make a silk purse out of a sow's ear
	✗ 2. a rolling stone gathers no moss
	✗ 3. the grass is always greener on the other side
	✗ 4. you should not put all your eggs in one basket

Question ID :	**441009136458**
Option 1 ID :	**441009542235**
Option 2 ID :	**441009542236**
Option 3 ID :	**441009542238**
Option 4 ID :	**441009542237**

Q.18	Select the most appropriate ANTONYM of the given word. Tyro
Ans	✗ 1. Debutant
	✗ 2. Learner
	✓ 3. Expert
	✗ 4. Skipper

Question ID :	4410091104209
Option 1 ID :	4410094354196
Option 2 ID :	4410094354195
Option 3 ID :	4410094354194
Option 4 ID :	4410094354197

Q.19	Identify the INCORRECTLY spelt word in the given paragraph and select the option that rectifies it. Ethan Hunt, Tom Cruise's most enduring role, was rarely much more than a name. That's the point of him; as the Mission: Impossible franchise's secret agent extraordinnaire, Hunt can pretend to be anyone, accomplish basically any physical task, and uncover conspiracies with aplomb. He's a cross between James Bond and a vaudeville performer. His charm is less about deep character development and more about the thrill of transformation—constantly shifting identities, outwitting villains, and pulling off impossible feats with a grin.
Ans	✗ 1. vaudeville
	✓ 2. extraordinaire
	✗ 3. grin
	✗ 4. aplomb

Question ID :	441009113708
Option 1 ID :	441009452320
Option 2 ID :	441009452318
Option 3 ID :	441009452321
Option 4 ID :	441009452319

Q.20	Select the most appropriate synonym of the given word. Malarkey
Ans	✗ 1. Lie
	✗ 2. Remedy
	✓ 3. Nonsense
	✗ 4. Malignity

Question ID :	4410091104223
Option 1 ID :	4410094354252
Option 2 ID :	4410094354250
Option 3 ID :	4410094354251
Option 4 ID :	4410094354253

Section : **Test of Hindi Language and Comprehension**

QuickSarkari.com | WhatsApp Channel | Telegram: t.me/quick_sarkari

Q.1	निम्नलिखित वाक्यों में से अतिरिक्त वाक्य का चयन करें -
Ans	✗ 1. हमें प्रौद्योगिकी का उपयोग संतुलित ढंग से करना चाहिए, ताकि यह हमारे संबंधों को कमजोर करने के बजाय उन्हें और अधिक सशक्त बना सके।
	✗ 2. सोशल मीडिया ने संवाद को तेज और सुलभ बना दिया है, किंतु इसके साथ ही यह भी देखा जा रहा है कि व्यक्ति अपने आसपास के वास्तविक संसार से दूर होता जा रहा है।
	✗ 3. आधुनिक युग में प्रौद्योगिकी ने हमारे जीवन को असीमित सुविधाएँ प्रदान की हैं, किंतु इसके प्रभाव से मानवीय संबंधों की संरचना भी बदल गई है।
	✓ 4. कल्पना ज्ञान से अधिक महत्त्वपूर्ण है, क्योंकि ज्ञान की कोई सीमा होती है, जबकि कल्पना पूरे ब्रह्मांड को समेट सकती है।

Question ID :	44100994959
Option 1 ID :	441009377823
Option 2 ID :	441009377822
Option 3 ID :	441009377821
Option 4 ID :	441009377820

Q.2	लोकोक्ति के सही अर्थ का चयन करें- 'दालभात में मूसलचन्द '
Ans	✗ 1. बार बार किसी एक ही काम को करना
	✗ 2. व्यर्थ का कार्य करना
	✗ 3. दाल को मूसल से तोड़ना
	✓ 4. किसी के काम में बेकार दखल देना

Question ID :	44100993268
Option 1 ID :	441009370783
Option 2 ID :	441009370784
Option 3 ID :	441009370782
Option 4 ID :	441009370781

Q.3	सार्थक शब्द के आधार पर रिक्त स्थान की पूर्ति कीजिए। फूल कई ---------- के होते हैं ।
Ans	✗ 1. सुंदर
	✗ 2. रूप
	✓ 3. प्रकार
	✗ 4. आकर्षक

Question ID :	4410091115449
Option 1 ID :	4410094397700
Option 2 ID :	4410094397701
Option 3 ID :	4410094397702
Option 4 ID :	4410094397699

Q.4	सार्थक शब्द के आधार पर रिक्त स्थान की पूर्ति कीजिए। —---------- के कारण ही मनुष्यों में अंतर स्पष्ट होता है।
Ans	✗ 1. राजनीति
	✗ 2. भेद
	✓ 3. चरित्र
	✗ 4. समाज

Question ID :	4410091115450
Option 1 ID :	4410094397706
Option 2 ID :	4410094397704
Option 3 ID :	4410094397703
Option 4 ID :	4410094397705

Q.5	दिए गए वाक्यांश के लिए एक शब्द होगा-- 'कुबेर का विमान'
Ans	✗ 1. पुष्पकेतु
	✗ 2. पुष्पकर्ण
	✗ 3. विक्रांत
	✓ 4. पुष्पक

Question ID :	441009475037
Option 1 ID :	4410091855564
Option 2 ID :	4410091855563
Option 3 ID :	4410091855562
Option 4 ID :	4410091855561

Q.6	निम्नलिखित विकल्पों में से कौन-सा वाक्य पूर्ण रूप से शुद्ध है -
Ans	✓ 1. माता-पिता का आदर करना चाहिए ।
	✗ 2. माता-पिता का आदर देना चाहिए ।
	✗ 3. माता-पिता का आदर रखना चाहिए ।
	✗ 4. माता-पिता का आदर लेना चाहिए ।

Question ID :	44100984105
Option 1 ID :	441009334162
Option 2 ID :	441009334161
Option 3 ID :	441009334160
Option 4 ID :	441009334163

Q.7	दिए गए वाक्य का सही क्रम होगा-- 1.इसी कारण वह इतर 2.प्राणियों से भिन्न है 3.कल्पना करना मनुष्य 4.का स्वभाव है और
Ans	✗ 1. 2,3,1,4
	✗ 2. 3,1,2,4
	✓ 3. 3,4,1,2
	✗ 4. 1,2,3,4

Question ID :	44100995614
Option 1 ID :	441009380422
Option 2 ID :	441009380423
Option 3 ID :	441009380420
Option 4 ID :	441009380421

Q.8	लोकोक्ति के सही अर्थ का चयन करें- अँधा बगुला कीचड़ खाये
Ans	✗ 1. परिश्रम का लाभ उठाना
	✓ 2. संसाधन की कमी से अयोग्य बनना
	✗ 3. समय निकल जाने पर पछताना
	✗ 4. चारों ओर कठिनाई होना

Question ID :	44100993261
Option 1 ID :	441009370754
Option 2 ID :	441009370753
Option 3 ID :	441009370755
Option 4 ID :	441009370756

QuickSarkari.com | WhatsApp Channel | Telegram: t.me/quick_sarkari

Q.9	दिए गए वाक्यों में से तीन का संबंध एक ही संदर्भ से जुड़ा हुआ है, जबकि एक वाक्य अतिरिक्त है। इनमें से अतिरिक्त वाक्य का चयन करें
Ans	✗ 1. यह दुनिया का सबसे बड़ा लिखित संविधान है और इसमें नागरिकों के अधिकार एवं कर्तव्य निर्धारित किए गए हैं।
	✗ 2. भारतीय संविधान को 26 नवंबर 1949 को अंगीकार किया गया था।
	✗ 3. यह संविधान 26 जनवरी 1950 को लागू हुआ, जिसे हम गणतंत्र दिवस के रूप में मनाते हैं।
	✓ 4. योग न केवल शारीरिक बल्कि मानसिक स्वास्थ्य के लिए भी लाभदायक होता है।

Question ID :	44100995533
Option 1 ID :	441009380090
Option 2 ID :	441009380088
Option 3 ID :	441009380089
Option 4 ID :	441009380091

Q.10	सर्वोचित शब्द से वाक्य का रिक्त स्थान पूर्ण करें— पहाड़ की/का ..... मुझे अनुकूल नहीं पड़ती/ता।
Ans	✗ 1. मौसम
	✗ 2. ऋतु
	✓ 3. जलवायु
	✗ 4. पर्यावरण

Question ID :	4410091115419
Option 1 ID :	4410094397579
Option 2 ID :	4410094397582
Option 3 ID :	4410094397581
Option 4 ID :	4410094397580

Q.11	सर्वोचित शब्द से वाक्य का रिक्त स्थान पूर्ण करें— उसने ..... द्वारा सिद्ध कर दिया कि नींद मस्तिष्क की थकान के कारण आती है।
Ans	✗ 1. युक्ति
	✗ 2. विचार
	✓ 3. तर्क
	✗ 4. बहस

Question ID :	4410091115420
Option 1 ID :	4410094397584
Option 2 ID :	4410094397586
Option 3 ID :	4410094397583
Option 4 ID :	4410094397585

Q.12	दिये गये वाक्य के किस भाग में त्रुटि है? हम रोज समय पर भोजन करना चाहिए।
Ans	✓ 1. हम रोज़
	✗ 2. करना चाहिए।
	✗ 3. भोजन
	✗ 4. समय पर

Question ID :	44100972046
Option 1 ID :	441009286535
Option 2 ID :	441009286538
Option 3 ID :	441009286537
Option 4 ID :	441009286536

QuickSarkari.com | WhatsApp Channel | Telegram: t.me/quick_sarkari

Q.13	दिए गए वाक्य क्रम सही नहीं हैं। उनके सही क्रम के चार विकल्प दिए गए हैं। उनमें से सही विकल्प चुनिए। (A) समाज सुधारकों ने शिक्षा को (B) बंगाल और महाराष्ट्र के अनेक (C) बढ़ावा देकर लोगों को अंग्रेजों के (D) षड्यंत्र से अवगत कराया
Ans	✔ 1. B, A, C, D
	✘ 2. C, D, A, B
	✘ 3. D, A, C, B
	✘ 4. B, C, D, A

Question ID :	44100995560
Option 1 ID :	441009380196
Option 2 ID :	441009380199
Option 3 ID :	441009380198
Option 4 ID :	441009380197

Q.14	सर्वोचित शब्द से वाक्य का रिक्त स्थान पूर्ण करें— नौकरी उसी को मिलेगी जो दिन में आठ घंटे काम करने की ..... रखता हो।
Ans	✔ 1. क्षमता
	✘ 2. अर्हता
	✘ 3. चेतना
	✘ 4. योग्यता

Question ID :	4410091115414
Option 1 ID :	4410094397562
Option 2 ID :	4410094397561
Option 3 ID :	4410094397560
Option 4 ID :	4410094397559

Q.15	वाक्यांश के लिए सार्थक शब्द चुनें। जो विज्ञान जानता है।
Ans	✘ 1. विज्ञानवेत्ता
	✔ 2. वैज्ञानिक
	✘ 3. विज्ञान
	✘ 4. विज्ञ

Question ID :	4410091115388
Option 1 ID :	4410094397457
Option 2 ID :	4410094397458
Option 3 ID :	4410094397456
Option 4 ID :	4410094397455

QuickSarkari.com | WhatsApp Channel | Telegram: t.me/quick_sarkari

Comprehension:

दिए गए गद्यांश को पढ़कर नीचे लिखे प्रश्नों के उत्तर दीजिए ।

किसी देश का उत्थान या पतन इस बात पर निर्भर करता है कि उसके नागरिक किस स्तर के हैं और यह स्तर बहुत करके वहाँ की शिक्षा-पद्धति पर निर्भर रहता है। व्यक्ति के निर्माण और समाज के उत्थान में शिक्षा का अत्यधिक महत्त्वपूर्ण योगदान होता है। प्राचीन काल की भारतीय गरिमा ,ऋषियों द्वारा संचालित गुरुकुल पद्धति के कारण ही ऊँची उठ सकी थी। पिछले दिनों भी जिन देशों ने अपना भला-बुरा निर्माण किया है, उसमें शिक्षा को ही प्रधान साधन बनाया है। जर्मनी, इटली का नाजीवाद, रूस और चीन का साम्यवाद, जापान का उद्योगवाद यूगोस्लाविया, स्विटजरलैंड, क्यूबा आदि में विशेष निर्माण कार्य शिक्षा प्रणाली में क्रांतिकारी परिवर्तन लाने से ही संभव हुआ। व्यक्ति का बौद्धिक और चारित्रिक निर्माण बहुत सीमा तक उपलब्ध शिक्षा प्रणाली पर निर्भर करता है। आज ऐसी शिक्षा की आवश्यकता है, जो पूरे समाज और देश में नैतिकता उत्पन्न कर सके। यह नैतिकता नैतिक शिक्षा के द्वारा ही उत्पन्न की जा सकती है।
वर्तमान विश्व के विकास के प्रमुख आधार विज्ञान और प्रौद्योगिकी है। वर्तमान विश्व में न केवल ज्ञान का विस्फोट, जनसंख्या का विस्फोट, गतिपूर्ण सामाजिक परिवर्तन आदि हो रहे हैं, अपितु हमारे परिवार तथा समाज का ढाँचा भी उसी गति से परिवर्तित हो रहा है। प्रचार, विचार-विमर्श तथा विचार-विनियम के नवीन प्रभावी साधन विकसित हो रहे हैं। इन सभी का हमारे नैतिक मूल्यों पर प्रभाव पड़ा है। आज आवश्यकता इस बात की है कि विज्ञान-आधारित विकास को जीवन-शक्ति ,हमारे नैतिक एवं आध्यात्मिक आधारों से प्राप्त हो।

SubQuestion No : 16

Q.16 उपर्युक्त गद्यांश के अनुसार किसी देश का उत्थान या पतन अप्रत्यक्ष रूप से किस बात पर निर्भर करता है-

Ans
✗ 1. आध्यात्मिक विकास पर
✓ 2. शिक्षा-पद्धति पर
✗ 3. सामाजिक असमानताओं पर
✗ 4. जनसंख्या वृद्धि पर

Question ID :	**44100992815**
Option 1 ID :	**441009368967**
Option 2 ID :	**441009368966**
Option 3 ID :	**441009368968**
Option 4 ID :	**441009368965**

QuickSarkari.com | WhatsApp Channel | Telegram: t.me/quick_sarkari

Comprehension:

दिए गए गद्यांश को पढ़कर नीचे लिखे प्रश्नों के उत्तर दीजिए ।

किसी देश का उत्थान या पतन इस बात पर निर्भर करता है कि उसके नागरिक किस स्तर के हैं और यह स्तर बहुत करके वहाँ की शिक्षा-पद्धति पर निर्भर रहता है। व्यक्ति के निर्माण और समाज के उत्थान में शिक्षा का अत्यधिक महत्त्वपूर्ण योगदान होता है। प्राचीन काल की भारतीय गरिमा ,ऋषियों द्वारा संचालित गुरुकुल पद्धति के कारण ही ऊँची उठ सकी थी। पिछले दिनों भी जिन देशों ने अपना भला-बुरा निर्माण किया है, उसमें शिक्षा को ही प्रधान साधन बनाया है। जर्मनी, इटली का नाजीवाद, रूस और चीन का साम्यवाद, जापान का उद्योगवाद यूगोस्लाविया, स्विटजरलैंड, क्यूबा आदि में विशेष निर्माण कार्य शिक्षा प्रणाली में क्रांतिकारी परिवर्तन लाने से ही संभव हुआ। व्यक्ति का बौद्धिक और चारित्रिक निर्माण बहुत सीमा तक उपलब्ध शिक्षा प्रणाली पर निर्भर करता है। आज ऐसी शिक्षा की आवश्यकता है, जो पूरे समाज और देश में नैतिकता उत्पन्न कर सके। यह नैतिकता नैतिक शिक्षा के द्वारा ही उत्पन्न की जा सकती है।
वर्तमान विश्व के विकास के प्रमुख आधार विज्ञान और प्रौद्योगिकी है। वर्तमान विश्व में न केवल ज्ञान का विस्फोट, जनसंख्या का विस्फोट, गतिपूर्ण सामाजिक परिवर्तन आदि हो रहे हैं, अपितु हमारे परिवार तथा समाज का ढाँचा भी उसी गति से परिवर्तित हो रहा है। प्रचार, विचार-विमर्श तथा विचार-विनियम के नवीन प्रभावी साधन विकसित हो रहे हैं। इन सभी का हमारे नैतिक मूल्यों पर प्रभाव पड़ा है। आज आवश्यकता इस बात की है कि विज्ञान-आधारित विकास को जीवन-शक्ति ,हमारे नैतिक एवं आध्यात्मिक आधारों से प्राप्त हो।

SubQuestion No : 17

Q.17 उपर्युक्त गद्यांश की विषय वस्तु है –

Ans
✗ 1. विज्ञान और प्रौद्योगिकी
✓ 2. नैतिक-शिक्षा
✗ 3. गुरुकुल शिक्षा-पद्धति
✗ 4. सामाजिक परिवर्तन

Question ID :	**44100992816**
Option 1 ID :	**441009368970**
Option 2 ID :	**441009368971**
Option 3 ID :	**441009368972**
Option 4 ID :	**441009368969**

QuickSarkari.com | WhatsApp Channel | Telegram: t.me/quick_sarkari

Comprehension:

दिए गए गद्यांश को पढ़कर नीचे लिखे प्रश्नों के उत्तर दीजिए ।

किसी देश का उत्थान या पतन इस बात पर निर्भर करता है कि उसके नागरिक किस स्तर के हैं और यह स्तर बहुत करके वहाँ की शिक्षा-पद्धति पर निर्भर रहता है। व्यक्ति के निर्माण और समाज के उत्थान में शिक्षा का अत्यधिक महत्त्वपूर्ण योगदान होता है। प्राचीन काल की भारतीय गरिमा ,ऋषियों द्वारा संचालित गुरुकुल पद्धति के कारण ही ऊँची उठ सकी थी। पिछले दिनों भी जिन देशों ने अपना भला-बुरा निर्माण किया है, उसमें शिक्षा को ही प्रधान साधन बनाया है। जर्मनी, इटली का नाजीवाद, रूस और चीन का साम्यवाद, जापान का उद्योगवाद यूगोस्लाविया, स्विटजरलैंड, क्यूबा आदि में विशेष निर्माण कार्य शिक्षा प्रणाली में क्रांतिकारी परिवर्तन लाने से ही संभव हुआ। व्यक्ति का बौद्धिक और चारित्रिक निर्माण बहुत सीमा तक उपलब्ध शिक्षा प्रणाली पर निर्भर करता है। आज ऐसी शिक्षा की आवश्यकता है, जो पूरे समाज और देश में नैतिकता उत्पन्न कर सके। यह नैतिकता नैतिक शिक्षा के द्वारा ही उत्पन्न की जा सकती है।
वर्तमान विश्व के विकास के प्रमुख आधार विज्ञान और प्रौद्योगिकी है। वर्तमान विश्व में न केवल ज्ञान का विस्फोट, जनसंख्या का विस्फोट, गतिपूर्ण सामाजिक परिवर्तन आदि हो रहे हैं, अपितु हमारे परिवार तथा समाज का ढाँचा भी उसी गति से परिवर्तित हो रहा है। प्रचार, विचार-विमर्श तथा विचार-विनियम के नवीन प्रभावी साधन विकसित हो रहे हैं। इन सभी का हमारे नैतिक मूल्यों पर प्रभाव पड़ा है। आज आवश्यकता इस बात की है कि विज्ञान-आधारित विकास को जीवन-शक्ति ,हमारे नैतिक एवं आध्यात्मिक आधारों से प्राप्त हो।

SubQuestion No : 18

Q.18 वर्तमान विश्व में नैतिक मूल्यों को प्रभावित करने वाला कारण नहीं है –

Ans
✗ 1. जनसंख्या का विस्फोट
✓ 2. गुरुकुल शिक्षा-पद्धति
✗ 3. गतिपूर्ण सामाजिक परिवर्तन
✗ 4. ज्ञान का विस्फोट

Question ID :	**44100992817**
Option 1 ID :	**441009368974**
Option 2 ID :	**441009368976**
Option 3 ID :	**441009368975**
Option 4 ID :	**441009368973**

QuickSarkari.com | WhatsApp Channel | Telegram: t.me/quick_sarkari

Comprehension:

दिए गए गद्यांश को पढ़कर नीचे लिखे प्रश्नों के उत्तर दीजिए ।

किसी देश का उत्थान या पतन इस बात पर निर्भर करता है कि उसके नागरिक किस स्तर के हैं और यह स्तर बहुत करके वहाँ की शिक्षा-पद्धति पर निर्भर रहता है। व्यक्ति के निर्माण और समाज के उत्थान में शिक्षा का अत्यधिक महत्त्वपूर्ण योगदान होता है। प्राचीन काल की भारतीय गरिमा ,ऋषियों द्वारा संचालित गुरुकुल पद्धति के कारण ही ऊँची उठ सकी थी। पिछले दिनों भी जिन देशों ने अपना भला-बुरा निर्माण किया है, उसमें शिक्षा को ही प्रधान साधन बनाया है। जर्मनी, इटली का नाजीवाद, रूस और चीन का साम्यवाद, जापान का उद्योगवाद यूगोस्लाविया, स्विटजरलैंड, क्यूबा आदि में विशेष निर्माण कार्य शिक्षा प्रणाली में क्रांतिकारी परिवर्तन लाने से ही संभव हुआ। व्यक्ति का बौद्धिक और चारित्रिक निर्माण बहुत सीमा तक उपलब्ध शिक्षा प्रणाली पर निर्भर करता है। आज ऐसी शिक्षा की आवश्यकता है, जो पूरे समाज और देश में नैतिकता उत्पन्न कर सके। यह नैतिकता नैतिक शिक्षा के द्वारा ही उत्पन्न की जा सकती है।
वर्तमान विश्व के विकास के प्रमुख आधार विज्ञान और प्रौद्योगिकी है। वर्तमान विश्व में न केवल ज्ञान का विस्फोट, जनसंख्या का विस्फोट, गतिपूर्ण सामाजिक परिवर्तन आदि हो रहे हैं, अपितु हमारे परिवार तथा समाज का ढाँचा भी उसी गति से परिवर्तित हो रहा है। प्रचार, विचार-विमर्श तथा विचार-विनियम के नवीन प्रभावी साधन विकसित हो रहे हैं। इन सभी का हमारे नैतिक मूल्यों पर प्रभाव पड़ा है। आज आवश्यकता इस बात की है कि विज्ञान-आधारित विकास को जीवन-शक्ति ,हमारे नैतिक एवं आध्यात्मिक आधारों से प्राप्त हो।

SubQuestion No : 19

Q.19 **'साम्यवाद' से अभिप्राय है –**

Ans

✗ 1. ऐसी आर्थिक प्रणाली जिसमें धनिक वर्ग उत्पादन साधनों पर अधिकार कर श्रमिकों का शोषण करता है।

✓ 2. वर्गहीन समुदाय के लिए सामाजिक सुव्यवस्था का सिद्धांत।

✗ 3. वह शासन व्यवस्था जिसमें राज्य की भूमि बड़े-बड़े जमींदारों के अधिकार में रहती है ।

✗ 4. एक राष्ट्र का अन्य राष्ट्र को अपने अधीन कर अपना हित पूरा करने का सिद्धांत।

Question ID :	**44100992818**
Option 1 ID :	**441009368977**
Option 2 ID :	**441009368978**
Option 3 ID :	**441009368980**
Option 4 ID :	**441009368979**

QuickSarkari.com | WhatsApp Channel | Telegram: t.me/quick_sarkari

Comprehension:

दिए गए गद्यांश को पढ़कर नीचे लिखे प्रश्नों के उत्तर दीजिए ।

किसी देश का उत्थान या पतन इस बात पर निर्भर करता है कि उसके नागरिक किस स्तर के हैं और यह स्तर बहुत करके वहाँ की शिक्षा-पद्धति पर निर्भर रहता है। व्यक्ति के निर्माण और समाज के उत्थान में शिक्षा का अत्यधिक महत्त्वपूर्ण योगदान होता है। प्राचीन काल की भारतीय गरिमा ,ऋषियों द्वारा संचालित गुरुकुल पद्धति के कारण ही ऊँची उठ सकी थी। पिछले दिनों भी जिन देशों ने अपना भला-बुरा निर्माण किया है, उसमें शिक्षा को ही प्रधान साधन बनाया है। जर्मनी, इटली का नाजीवाद, रूस और चीन का साम्यवाद, जापान का उद्योगवाद यूगोस्लाविया, स्विटजरलैंड, क्यूबा आदि में विशेष निर्माण कार्य शिक्षा प्रणाली में क्रांतिकारी परिवर्तन लाने से ही संभव हुआ। व्यक्ति का बौद्धिक और चारित्रिक निर्माण बहुत सीमा तक उपलब्ध शिक्षा प्रणाली पर निर्भर करता है। आज ऐसी शिक्षा की आवश्यकता है, जो पूरे समाज और देश में नैतिकता उत्पन्न कर सके। यह नैतिकता नैतिक शिक्षा के द्वारा ही उत्पन्न की जा सकती है।
वर्तमान विश्व के विकास के प्रमुख आधार विज्ञान और प्रौद्योगिकी है। वर्तमान विश्व में न केवल ज्ञान का विस्फोट, जनसंख्या का विस्फोट, गतिपूर्ण सामाजिक परिवर्तन आदि हो रहे हैं, अपितु हमारे परिवार तथा समाज का ढाँचा भी उसी गति से परिवर्तित हो रहा है। प्रचार, विचार-विमर्श तथा विचार-विनियम के नवीन प्रभावी साधन विकसित हो रहे हैं। इन सभी का हमारे नैतिक मूल्यों पर प्रभाव पड़ा है। आज आवश्यकता इस बात की है कि विज्ञान-आधारित विकास को जीवन-शक्ति ,हमारे नैतिक एवं आध्यात्मिक आधारों से प्राप्त हो।

SubQuestion No : 20

Q.20 'उत्थान' शब्द का तद्भव रूप होगा –

Ans
✗ 1. उठ
✓ 2. उठान
✗ 3. उगना
✗ 4. उछाह

Question ID :	**44100992819**
Option 1 ID :	**441009368983**
Option 2 ID :	**441009368981**
Option 3 ID :	**441009368984**
Option 4 ID :	**441009368982**

Section : **Test of Hindi Language and Comprehension1**

Q.1 निम्नलिखित में से कलापी का कौन सा अनेकार्थी शब्द नहीं है?

Ans
✓ 1. रात्रि
✗ 2. वटवृक्ष
✗ 3. मोर
✗ 4. कोयल

Question ID :	**441009397572**
Option 1 ID :	**4410091555724**
Option 2 ID :	**4410091555725**
Option 3 ID :	**4410091555727**
Option 4 ID :	**4410091555726**

QuickSarkari.com | WhatsApp Channel | Telegram: t.me/quick_sarkari

Q.2	निम्नलिखित वाक्य में रेखांकित शब्द का विलोम चुनें बंगाल और महाराष्ट्र के विद्वानों ने भारतीय संस्कृति, परंपराओं और गौरव-शाली इतिहास को उजागर करने के लिए शोध किए।
Ans	✗ 1. प्रतिष्ठा
	✗ 2. महिमा
	✗ 3. श्रेय
	✓ 4. लाघव

Question ID :	44100995743
Option 1 ID :	441009380941
Option 2 ID :	441009380943
Option 3 ID :	441009380942
Option 4 ID :	441009380940

Q.3	निम्नलिखित वाक्य को पूर्ण करने के लिए उचित परिमाणवाचक क्रिया-विशेषण का प्रयोग करें- अंग्रेजों द्वारा फैलाया गया 'सभ्यता मिशन' भारतीय समाज के लिए _____ हानिकारक सिद्ध हुआ।
Ans	✗ 1. कदाचित
	✗ 2. सचमुच
	✗ 3. निःसंदेह
	✓ 4. सर्वथा

Question ID :	44100995615
Option 1 ID :	441009380427
Option 2 ID :	441009380426
Option 3 ID :	441009380425
Option 4 ID :	441009380424

Q.4	निम्नलिखित वाक्य के रेखांकित पद में वर्तनी संबंधी अशुद्धि है। दिए गए विकल्पों में से सही वर्तनी वाला शब्द चुनिए- बिहारी का वाग्वैदग्धय उनकी कविता की अन्यतम विशेषता है
Ans	✗ 1. वाक्वैदग्य
	✓ 2. वाग्वैदग्ध्य
	✗ 3. वागविगग्ध
	✗ 4. वागवेदग्ध्य

Question ID :	441009115137
Option 1 ID :	441009457988
Option 2 ID :	441009457989
Option 3 ID :	441009457991
Option 4 ID :	441009457990

Q.5	दिए गए वाक्य में उचित प्रेरणार्थक क्रिया शब्द का चयन करके रिक्त स्थान की पूर्ति करें – कार्यालय के कर्मचारी ,बड़े अधिकारी से आवेदन स्वीकृत ---------- हैं।
Ans	✓ 1. करवाते
	✗ 2. करना
	✗ 3. करवाने
	✗ 4. करते

Question ID :	44100993639
Option 1 ID :	441009372507
Option 2 ID :	441009372506
Option 3 ID :	441009372508
Option 4 ID :	441009372505

Q.6	दिए गए वाक्य के किस भाग में त्रुटि है? इस वाक़य की व्याकरणिक अशुद्धियाँ देखो।
Ans	✔ 1. इस वाक़य की
	✘ 2. अशुद्धियाँ
	✘ 3. व्याकरणिक
	✘ 4. देखो

Question ID :	441009108988
Option 1 ID :	441009433769
Option 2 ID :	441009433771
Option 3 ID :	441009433770
Option 4 ID :	441009433772

Q.7	निम्नलिखित वाक्य को पूर्ण करने के लिए उचित परिमाणवाचक क्रिया-विशेषण का प्रयोग करें- बंगाल में अंग्रेजों की बढ़ती सत्ता को लेकर लोगों में _____ असंतोष फैलने लगा।
Ans	✘ 1. परस्पर
	✔ 2. काफी
	✘ 3. शायद
	✘ 4. अवश्य

Question ID :	44100995616
Option 1 ID :	441009380429
Option 2 ID :	441009380428
Option 3 ID :	441009380430
Option 4 ID :	441009380431

Q.8	निम्नलिखित वाक्य को पूर्ण करने के लिए उचित क्रिया शब्द का चयन करें- मराठों ने अंग्रेजों के बढ़ते प्रभाव का _____, लेकिन अंततः उन्हें संधि करने के लिए मजबूर होना पड़ा।
Ans	✔ 1. विरोध किया
	✘ 2. विद्रोह लिया
	✘ 3. समर्थन करते है
	✘ 4. हिंसा की

Question ID :	44100995607
Option 1 ID :	441009380384
Option 2 ID :	441009380386
Option 3 ID :	441009380385
Option 4 ID :	441009380387

Q.9	संस्कृत साहित्य में वयवृद्ध मनीषियों द्वारा प्रतिपादित शाश्वत सत्य आज भी जीवन की गूढ़ समस्याओं के समाधान हेतु मार्गदर्शन प्रदान करते हैं। दिए गए वाक्य के किस भाग में त्रुटि है?
Ans	✘ 1. शाश्वत
	✘ 2. प्रतिपादित
	✔ 3. वयवृद्ध
	✘ 4. मनीषियों

Question ID :	44100995048
Option 1 ID :	441009378159
Option 2 ID :	441009378158
Option 3 ID :	441009378156
Option 4 ID :	441009378157

Q.10	निम्नलिखित में से 'सोलह' का तत्सम शब्द कौन-सा होगा-
Ans	✗ 1. शोभन
	✗ 2. स्वर्ण
	✓ 3. षोडश
	✗ 4. समर्पण

Question ID :	441009107076
Option 1 ID :	441009426326
Option 2 ID :	441009426323
Option 3 ID :	441009426325
Option 4 ID :	441009426324

Q.11	निम्नलिखित वाक्य को 'करण कारक' द्वारा पूर्ण करें- यदि बंगाल के लोग इस मिशन ____ असहमत होते और विरोध करते, तो उन्हें असभ्य और कृतघ्न समझा जाता था।
Ans	✗ 1. पर
	✗ 2. द्वारा
	✓ 3. से
	✗ 4. में

Question ID :	44100995590
Option 1 ID :	441009380317
Option 2 ID :	441009380319
Option 3 ID :	441009380316
Option 4 ID :	441009380318

Q.12	निम्नलिखित मुहावरे के अर्थ को बताएं - 'ऊँची दुकान फीका पकवान'
Ans	✗ 1. मामूली आदमी
	✗ 2. अपर्याप्त
	✗ 3. अनमोल संयोग
	✓ 4. दिखावा ज्यादा लेकिन गुण कम होना

Question ID :	44100994983
Option 1 ID :	441009377913
Option 2 ID :	441009377914
Option 3 ID :	441009377915
Option 4 ID :	441009377912

Q.13	निम्नलिखित में से कौन-सा विकल्प तत्सम शब्द है?
Ans	✓ 1. दधि
	✗ 2. आँसू
	✗ 3. आग
	✗ 4. आज

Question ID :	441009109036
Option 1 ID :	441009433962
Option 2 ID :	441009433965
Option 3 ID :	441009433963
Option 4 ID :	441009433964

Q.14	नीचे दिए गए वाक्य के किस भाग में त्रुटि है ? 'बच्चे को पौष्टिक अहार चाहिए।'
Ans	✗ 1. पौष्टिक
	✗ 2. चाहिए
	✓ 3. अहार
	✗ 4. बच्चे

Question ID :	441009107053
Option 1 ID :	441009426236
Option 2 ID :	441009426238
Option 3 ID :	441009426237
Option 4 ID :	441009426235

Q.15	निम्नलिखित वाक्य में रेखांकित शब्द का विलोम चुनें महाराष्ट्र के नेताओं ने विदेशी वस्त्रों के बहिष्कार और स्वदेशी वस्तुओं को अपनाने के लिए अभियान चलाए।
Ans	✗ 1. वर्जन
	✗ 2. निष्कासन
	✗ 3. आयोग
	✓ 4. स्वीकृति

Question ID :	44100995740
Option 1 ID :	441009380930
Option 2 ID :	441009380929
Option 3 ID :	441009380931
Option 4 ID :	441009380928

Q.16	निम्नलिखित वाक्य में रेखांकित शब्द का पर्यायवाची चुनें- महाराष्ट्र में राजनीतिक जागरूकता फैलाने के लिए सार्वजनिक व्याख्यानों और विचार-विमर्श की परंपरा विकसित की गई।
Ans	✓ 1. सजगता
	✗ 2. तीव्रता
	✗ 3. विनम्रता
	✗ 4. चंचलता

Question ID :	44100995726
Option 1 ID :	441009380872
Option 2 ID :	441009380875
Option 3 ID :	441009380873
Option 4 ID :	441009380874

Q.17	आलस्य करना किसी भी लक्ष्य को प्राप्त करने में सबसे बड़ी बाधा है। रेखांकित शब्द का विलोम चुनें-
Ans	✗ 1. प्रमाद
	✗ 2. अकर्मण्य
	✓ 3. उद्यम
	✗ 4. शिथिल

Question ID :	44100995165
Option 1 ID :	441009378609
Option 2 ID :	441009378611
Option 3 ID :	441009378608
Option 4 ID :	441009378610

Q.18	लोकोक्ति के सही अर्थ का चयन करें- 'कभी नाव पर गाड़ी और कभी गाड़ी पर नाव ।'
Ans	✗ 1. आपसी फूट से हानि होती है
	✗ 2. सुख के लिए जाये पर मिले दुःख
	✓ 3. स्थिति सर्वदा एक समान नहीं रहती
	✗ 4. बिल्कुल उल्टा काम

Question ID :	44100993247
Option 1 ID :	441009370700
Option 2 ID :	441009370699
Option 3 ID :	441009370697
Option 4 ID :	441009370698

Q.19	'अंतहीन' और''आकाश' किस शब्द के अनेकार्थी शब्द हैं-
Ans	✓ 1. अनंत
	✗ 2. पृथ्वी
	✗ 3. शून्य
	✗ 4. अधिकार

Question ID :	441009444813
Option 1 ID :	4410091737933
Option 2 ID :	4410091737935
Option 3 ID :	4410091737936
Option 4 ID :	4410091737934

Q.20	'हाथ कंगन को आरसी क्या'- लोकोक्ति का अर्थ क्या है?
Ans	✓ 1. प्रत्यक्ष को प्रमाण की क्या आवश्यकता है
	✗ 2. पुरुषार्थी के लिए सफलता सरल होती है
	✗ 3. परिवेश के अनुकूल व्यवहार करना
	✗ 4. दूसरों का अहित सोचने वाला अपना अहित कर लेता है

Question ID :	44100995231
Option 1 ID :	441009378873
Option 2 ID :	441009378875
Option 3 ID :	441009378872
Option 4 ID :	441009378874

QuickSarkari

Quick Sarkari

Thank you for studying with QuickSarkari!

Get the latest Sarkari Naukri notifications, admit cards, results, answer keys and free previous-year papers first - follow us on WhatsApp and Telegram.

Visit www.quicksarkari.com

Join our WhatsApp Channel

https://whatsapp.com/channel/0029VaxxbrREquiPoXTWM229

Join our Telegram Channel

https://t.me/quick_sarkari

Share this PDF with your friends preparing for DSSSB exams.