Quick Sarkari

DSSSB PREVIOUS YEAR PAPER WITH ANSWER KEY

DSSSB Assistant Teacher (Nursery)

12 August 2025 · Shift 1

डीएसएसएसबी सहायक अध्यापक (नर्सरी) – 12 अगस्त 2025, शिफ्ट 1 का प्रश्न पत्र, उत्तर कुंजी सहित

200	120 min	1 / −0.25	EN + HI
Questions / प्रश्न	Duration / समय	Marks per Q / अंक	Language / भाषा

Sections: General intelligence and Reasoning Ability, General Awareness, Arithmetical and Numerical Ability, English Language and Comprehension, Hindi Language and Comprehension, Assistant Teacher (Nursery)

INSIDE THIS PDF / इस PDF में

Question Paper in English + Hindi with Answer Key (correct option marked in green) + answer table — Page 2–50
प्रश्न पत्र अंग्रेज़ी + हिंदी में, उत्तर कुंजी सहित (सही विकल्प हरे रंग में) + उत्तर तालिका

Official DSSSB Response Sheet with Answer Key (correct option ticked in green) — Page 51–105
आधिकारिक DSSSB रिस्पॉन्स शीट, उत्तर कुंजी सहित (सही विकल्प हरे टिक से)

HOW TO USE THIS PAPER / इस पेपर का उपयोग कैसे करें

1. Attempt the paper first as a timed online mock test (link below).
   पहले नीचे दिए लिंक से इसे टाइमर के साथ ऑनलाइन मॉक टेस्ट के रूप में हल करें।
2. Check your score, section-wise analysis and solutions online.
   ऑनलाइन अपना स्कोर, खंड-वार विश्लेषण और हल देखें।
3. Use this PDF for revision. Correct answers are shown in green.
   दोहराने के लिए इस PDF का उपयोग करें। सही उत्तर हरे रंग में दिए गए हैं।

Attempt this paper as a FREE online mock test

इस पेपर को फ्री ऑनलाइन मॉक टेस्ट के रूप में हल करें – टाइमर, स्कोर और हल के साथ

https://quicksarkari.com/dsssb-assistant-teacher-nursery-12-august-2025-shift-1-mock-test/

All DSSSB Assistant Teacher (Nursery) papers and mock tests: **quicksarkari.com/dsssb-mock-test/#assistant-teacher-nursery**

Join WhatsApp Channel | Join Telegram Channel

DSSSB Assistant Teacher (Nursery) – Question Paper (English + Hindi)

DSSSB सहायक अध्यापक (नर्सरी) – प्रश्न पत्र (अंग्रेज़ी + हिंदी)

Exam held on 12 August 2025, Shift 1 · 200 questions · correct answers marked ✔ in green
परीक्षा तिथि 12 अगस्त 2025, शिफ्ट 1 · 200 प्रश्न · सही उत्तर हरे रंग में ✔ से चिह्नित

> The official paper for this shift was in Hindi. The English version of each question is a translation prepared by QuickSarkari; the language-section questions are shown as asked.
> इस शिफ्ट का आधिकारिक प्रश्न पत्र हिंदी में था। प्रत्येक प्रश्न का अंग्रेज़ी संस्करण QuickSarkari द्वारा तैयार किया गया अनुवाद है; भाषा खंड के प्रश्न मूल रूप में दिए गए हैं।

General intelligence and Reasoning Ability

Q.1 Based on the English alphabetical order, three of the following four letter-clusters are alike in a certain way and thus form a group. Which letter-cluster DOES NOT belong to that group?
(Note: The odd letter-cluster is not based on the number of consonants/vowels or their position in the letter-cluster.)
अंग्रेजी वर्णमाला क्रम पर आधारित, निम्नलिखित चार अक्षर-समूहों में से तीन एक निश्चित तरीके से समान हैं और इस प्रकार एक ग्रुप बनाते हैं। कौन-सा अक्षर-समूह उस ग्रुप से संबंधित नहीं है?
(नोट: असंगत अक्षर समूह, व्यंजनों/स्वरों की संख्या या उनकी स्थिति पर आधारित नहीं है।)

(1) YHO ✔
(2) TCL
(3) SBK
(4) GPY

Q.2 In a certain code language, 'LAKE' is coded as '8697' and 'BEAK' is coded as '3876'. What is the code for 'B' in the given code language?
एक निश्चित कूट भाषा में, 'LAKE' को '8697' के रूप में और 'BEAK' को '3876' के रूप में कूटबद्ध किया जाता है। दी गई कूट भाषा में 'B' का कूट क्या है?

(1) 8
(2) 3 ✔
(3) 7
(4) 6

Q.3 A, B, C, D, Q, R and S are sitting around a circular table facing the centre. Only four people sit between A and Q when counted from the right of A. Only one person sits between Q and S when counted from the left of Q. Only two people sit between A and R when counted from the left of A. Only two people sit between S and C when counted from the left of C. Only one person sits between C and D when counted from the right of C. Who is sitting second to the right of B?
A, B, C, D, Q, R और S एक गोल मेज के परित: केंद्र की ओर अभिमुख होकर बैठे हैं। A के दाईं ओर से गिनने पर A और Q के बीच केवल चार व्यक्ति बैठे हैं। Q के बाईं ओर से गिनने पर Q और S के बीच केवल एक व्यक्ति बैठा है। A के बाईं ओर से गिनने पर A और R के बीच केवल दो व्यक्ति बैठे हैं। C के बाईं ओर से गिनने पर S और C के बीच केवल दो व्यक्ति बैठे हैं। C के दाईं ओर से गिनने पर C और D के बीच केवल एक व्यक्ति बैठा है। B के दाईं ओर से दूसरे स्थान पर कौन बैठा है?

(1) Q
(2) D
(3) A
(4) R ✔

Q.4 Refer to the following letter and symbol series and answer the question given below. Counting is to be done from left to right only.
(Left) T % * A @ U $ K P C % D B @ M & Ω Y # E (Right)
If all the letters are removed from the series, which of the following will be seventh from the right?
निम्नलिखित अक्षर और प्रतीक श्रृंखला का संदर्भ लीजिए और नीचे दिए गए प्रश्न का उत्तर दीजिए। गिनती केवल बाएँ से दाएँ की जानी है।
(बाएँ) T % * A @ U $ K P C % D B @ M & Ω Y # E (दाएँ)
यदि श्रृंखला से सभी अक्षर हटा दिए जाएं, तो निम्नलिखित में से कौन-सा दाएं से सातवां होगा?

(1) @ ✔
(2) %
(3) #
(4) *

Q.5 Based on the English alphabetical order, three of the following four letter-cluster pairs are alike in a certain way and thus form a group. Which letter-cluster pair DOES NOT belong to that group?
(Note: The odd letter-cluster pair is not based on the number of consonants/vowels or their position in the letter-cluster.)
अंग्रेजी वर्णमाला क्रम पर आधारित, निम्नलिखित चार अक्षर-समूह युग्मों में से तीन एक निश्चित तरीके से समान हैं और इस प्रकार एक ग्रुप बनाते हैं। कौन-सा अक्षर-समूह युग्म उस ग्रुप से संबंधित नहीं है?
(नोट: असंगत अक्षर समूह युग्म, व्यंजनों/स्वरों की संख्या या उनकी स्थिति पर आधारित नहीं है।)

(1) WG - ZI
(2) DS - GU
(3) NQ - QT ✔
(4) UB - XD

Q.6 Refer to the following number and symbol series and answer the question given below. Counting is to be done from left to right only.
(Left) 1 @ 7 2 * $ & 5 % 6 Ω 4 3 # 8 £ 9 (Right)
If all the symbols are removed from the series, which of the following will be seventh from the left?
निम्नलिखित संख्या और प्रतीक श्रृंखला का संदर्भ लीजिए तथा नीचे दिए गए प्रश्न का उत्तर दीजिए। गिनती केवल बाएँ से दाएँ की जानी है।
(बाएँ) 1 @ 7 2 * $ & 5 % 6 Ω 4 3 # 8 £ 9 (दाएँ)
यदि श्रृंखला से सभी प्रतीकों को हटा दिया जाए, तो निम्नलिखित में से कौन-सा, बाएँ से सातवां होगा?

(1) 3 ✔
(2) 8
(3) 4
(4) 9

Q.7 Read the given statements and conclusions carefully. Assuming that the information given in the statements is true, even if it appears to be at variance with commonly known facts, decide which of the given conclusions logically follow(s) from the statements.
Statements:
Some roses are bushes.
Some thorns are roses.
All jungles are bushes.
Conclusions:
(I) Some thorns are bushes.
(II) Some roses are jungles.

दिए गए कथनों और निष्कर्षों का ध्यानपूर्वक अध्ययन कीजिए यह मानते हुए कि कथनों में दी गई जानकारी सत्य है, भले ही वह सामान्यतः ज्ञात तथ्यों से भिन्न प्रतीत होती हो, तय कीजिए कि दिए गए निष्कर्षों में से कौन-सा/से
निष्कर्ष कथनों का तार्किक रूप से अनुसरण करता है/करते हैं।
कथन:
कुछ गुलाब, झाड़ियाँ हैं।
कुछ काँटे, गुलाब हैं।
सभी जंगल, झाड़ियाँ हैं।
निष्कर्ष:
(I) कुछ काँटे, झाड़ियाँ हैं।
(II) कुछ गुलाब, जंगल हैं।

(1) Only conclusion (I) follows. / केवल निष्कर्ष (I) अनुसरण करता है।
(2) Both conclusions (I) and (II) follow. / निष्कर्ष (I) और (II) दोनों अनुसरण करते हैं।
(3) Neither conclusion (I) nor (II) follows. / न तो निष्कर्ष (I) और न ही (II) अनुसरण करता है। ✔
(4) Only conclusion (II) follows. / केवल निष्कर्ष (II) अनुसरण करता है।

Q.8 Select the set in which the numbers are related in the same way as are the numbers of the following sets.
(NOTE: Operations should be performed on the whole numbers, without breaking down the numbers into their constituent digits. E.g. 13 – Operations on 13 such as adding/subtracting/multiplying to 13 can be performed. Breaking down 13 into 1 and 3 and then performing mathematical operations on 1 and 3 is not allowed.)
(53, 57.6, 62.2)
(44, 48.6, 53.2)

उस समुच्चय का चयन कीजिए जिसमें संख्याएं उसी प्रकार संबंधित हैं, जिस प्रकार निम्नलिखित समुच्चयों की संख्याएं संबंधित हैं।
(नोट: संख्याओं को उनके घटक अंकों में तोड़े बिना, पूर्ण संख्याओं पर संक्रियाएं की जानी चाहिए। उदाहरण के लिए 13 लीजिए, 13 पर संक्रियाएं जैसे कि 13 में जोड़ना/घटाना/गुणा करना, किया जा सकता है। 13 को 1 और 3 में तोड़ना तथा फिर 1 और 3 पर गणितीय संक्रियाएं करने की अनुमति नहीं है।)
(53, 57.6, 62.2)
(44, 48.6, 53.2)

(1) (49, 53.6, 60.2)
(2) (42, 47.6, 53.2)
(3) (57, 61.6, 66.2) ✔
(4) (51, 54.6, 59.2)

Q.9 Which two numbers should be interchanged to make the following equation correct?
(Note: The entire number must be interchanged, not the individual digits of the given number.)
9 × (34 − 12) + (51 ÷ 17) × 8 + 16 × 4 = 234

निम्नलिखित समीकरण को सही बनाने के लिए किन दो संख्याओं को परस्पर बदला जाना चाहिए?
(नोट: संपूर्ण संख्या को परस्पर बदला जाना चाहिए, न कि दी गई संख्या के अलग-अलग अंकों को।)
9 × (34 − 12) + (51 ÷ 17) × 8 + 16 × 4 = 234

(1) 34 and 51 / 34 और 51
(2) 8 and 9 / 8 और 9
(3) 9 and 4 / 9 और 4
(4) 12 and 16 / 12 और 16 ✔

Q.10 A, B, C, P, Q and R live on six different floors of the same building. The lowermost floor of the building is numbered 1, the floor above it is numbered 2, and so on till the topmost floor is numbered 6. Only Q lives above R. B lives immediately below R. Only A lives below P. Who lives on the third floor?

A, B, C, P, Q और R एक ही इमारत के छह अलग-अलग तलों पर रहते हैं। इमारत के सबसे निचले तल का क्रमांक 1 है, उसके ऊपर वाले तल का क्रमांक 2 है और इसी प्रकार सबसे ऊपर वाले तल का क्रमांक 6 है। केवल Q, R के ऊपर रहता है। B, R के ठीक नीचे रहता है। केवल A, P के नीचे रहता है। तीसरे तल पर कौन रहता है?

(1) R
(2) C ✔
(3) A
(4) B

Q.11 What will come in place of the question mark (?) in the following equation if '-' and '÷' are interchanged and '×' and '+' are interchanged?
25 + 42 − 7 × 7 ÷ 2 = ?

यदि '-' और '÷' को परस्पर बदल दिया जाए तथा '×' और '+' को परस्पर बदल दिया जाए, तो निम्नलिखित समीकरण में प्रश्न-चिह्न (?) के स्थान पर क्या आएगा?
25 + 42 − 7 × 7 ÷ 2 = ?

(1) 156
(2) 157
(3) 158
(4) 155 ✔

Q.12 Select the numbers from among the given options that can replace the question marks (?) in the following series.
69 ? 64 79 59 84 ?

दिए गए विकल्पों में से उन संख्याओं का चयन कीजिए, जिन्हें निम्नलिखित श्रृंखला में प्रश्न-चिह्न (?) से प्रतिस्थापित किया जाना चाहिए।
69 ? 64 79 59 84 ?

(1) 79, 94
(2) 74, 54 ✔
(3) 79, 99
(4) 74, 94

Q.13 In a certain code language, 'LION' is coded as '9315' and 'COIL' is coded as '7351'. What is the code for 'C' in the given code language?

एक निश्चित कूट भाषा में, 'LION' को '9315' के रूप में और 'COIL' को '7351' के रूप में कूटबद्ध किया जाता है। दी गई कूट भाषा में 'C' का कूट क्या है?

(1) 7 ✔

(2) 1

(3) 3

(4) 5

Q.14 Select the pair that follows the same pattern as that followed by the two set of pairs given below. Both pairs follow the same pattern.

PYG : LEC FAW : BGS

उस युग्म का चयन कीजिए जो नीचे दिए गए दो युग्मों के समूह के समान पैटर्न का अनुसरण करता है। दोनों युग्म समान पैटर्न का अनुसरण करते हैं।

PYG : LEC FAW : BGS

(1) XMO : TSK ✔

(2) SPQ : NTL

(3) HZG : BBA

(4) DYQ : HDW

Q.15 Select the pair that follows the same pattern as that followed by the two set of pairs given below. Both pairs follow the same pattern.

TVS : NXM FRE : ZTY

उस युग्म का चयन कीजिए जो नीचे दिए गए दो युग्मों के समूह के समान पैटर्न का अनुसरण करता है। दोनों युग्म समान पैटर्न का अनुसरण करते हैं।

TVS : NXM FRE : ZTY

(1) SPQ : NTL

(2) HZG : BBA ✔

(3) DYQ : HDW

(4) BRO : HMU

Q.16 L is the brother of M. M is the wife of N. N is the father of O. O is the sister of P. How is L related to P?

L, M का भाई है। M, N की पत्नी है। N, O का पिता है। O, P की बहन है। L का P से क्या संबंध है?

(1) Father's father / पिता के पिता

(2) Mother's brother / माता का भाई ✔

(3) Mother's father / माता के पिता

(4) Father's brother / पिता का भाई

Q.17 Select the number from among the given options that can replace the question mark (?) in the following series.

8 9 13 22 38 63 ?

दिए गए विकल्पों में से उन संख्याओं का चयन कीजिए, जिन्हें निम्नलिखित श्रृंखला में प्रश्न-चिह्न (?) से प्रतिस्थापित किया जाना चाहिए।

8 9 13 22 38 63 ?

(1) 83

(2) 99 ✔

(3) 93

(4) 88

Q.18 Select the option in which the given figure is embedded. (Rotation is NOT allowed)

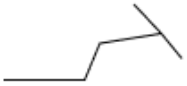

उस विकल्प का चयन करें जिसमें दी गई आकृति अंतर्निहित है। (घूर्णन की अनुमति नहीं है)

(1) 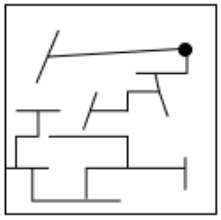

(2) 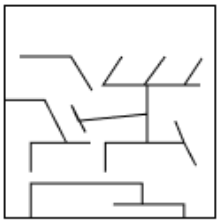

(3) 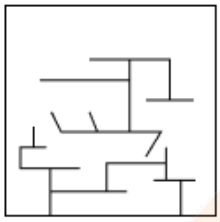

(4) 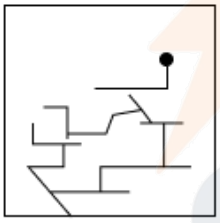

✔

Q.19 Each of G, H, I, J, M, N and O has an exam on a different day of the same week, starting from Monday and ending on Sunday.
G's exam is on Thursday and O's exam is on Saturday. M's exam is immediately before J. I's exam is on one of the days after H's exam. N's exam is immediately after J. How many people have their exams between I and N?

G, H, I, J, M, N और O में से प्रत्येक की परीक्षा सोमवार से शुरू होकर रविवार को समाप्त होने वाले उसी सप्ताह के अलग-अलग दिन होती है। G की परीक्षा गुरुवार को है तथा O की परीक्षा शनिवार को है। M की परीक्षा J से ठीक पहले है। I की परीक्षा, H की परीक्षा के बाद किसी एक दिन है। N की परीक्षा J के ठीक बाद है। I और N के बीच कितने व्यक्तियों की परीक्षा है?

(1) One / एक

(2) Four / चार

(3) **Three / तीन ✔**

(4) Two / दो

QuickSarkari.com | WhatsApp Channel | Telegram: t.me/quick_sarkari

Q.20 Select the set in which the numbers are related in the same way as are the numbers of the following sets.
(NOTE: Operations should be performed on the whole numbers, without breaking down the numbers into their constituent digits. E.g. 13 – Operations on 13 such as adding/subtracting/multiplying to 13 can be performed. Breaking down 13 into 1 and 3 and then performing mathematical operations on 1 and 3 is not allowed.)
(29, 53, 65)
(38, 62, 74)
उस समुच्चय का चयन करें जिसमें संख्याएं उसी तरह से संबंधित हैं, जिस प्रकार निम्नलिखित समुच्चयों की संख्याएं संबंधित हैं।
(नोट: संख्याओं को उनके घटक अंकों में तोड़े बिना, पूर्ण संख्याओं पर संक्रियाएं की जानी चाहिए। उदाहरण के लिए 13 लीजिए, 13 पर संक्रियाएं जैसे कि 13 में जोड़ना/घटाना/गुणा करना, किया जा सकता है। 13 को 1 और 3 में तोड़ना तथा फिर 1 और 3 पर गणितीय संक्रियाएं करने की अनुमति नहीं है।)
(29, 53, 65)
(38, 62, 74)

(1) (47, 71, 83) ✔
(2) (20, 44, 58)
(3) (68, 82, 104)
(4) (59, 63, 75)

General Awareness

Q.21 What initiative did the government propose to support achievement-linked reforms by state governments aimed at achieving the Viksit Bharat 2047 goal?
विकसित भारत 2047 लक्ष्य को प्राप्त करने के उद्देश्य से राज्य सरकारों द्वारा उपलब्धि से संबद्ध सुधारों को समर्थन प्रदान के लिए सरकार ने क्या पहल प्रस्तावित की?

(1) Tax incentives for small businesses / छोटे व्यवसायों के लिए कर प्रोत्साहन
(2) ₹75,000 crore 50-year interest-free loans / ₹75,000 करोड़ का 50 वर्षीय ब्याज-मुक्त ऋण ✔
(3) Direct funding for agricultural reforms / कृषि सुधारों के लिए प्रत्यक्ष वित्तपोषण
(4) Infrastructure grants for urban development / शहरी विकास के लिए अवसंरचना अनुदान

Q.22 The Hornbill Festival, which showcases the culture of the tribes of the state, is mainly celebrated in which state?
हॉर्नबिल महोत्सव मुख्यतः किस राज्य में मनाया जाता है, जिसमें उस राज्य की जनजातियों की संस्कृति को प्रदर्शित किया जाता है?

(1) Nagaland / नागालैंड ✔
(2) Assam / असम
(3) Mizoram / मिज़ोरम
(4) Meghalaya / मेघालय

Q.23 In the 'Income Method' of calculating national income, which of the following is NOT included?
राष्ट्रीय आय की गणना की 'आय विधि' में, निम्नलिखित में से किसे शामिल नहीं किया जाता है?

(1) Wages and salaries / मजदूरी और वेतन
(2) Interest / ब्याज
(3) Subsidies / सब्सिडी ✔
(4) Profit / लाभ

Q.24 Which of the following is the main objective of the 'Pradhan Mantri Jan Dhan Yojana'?

'प्रधानमंत्री जन धन योजना' का मुख्य उद्देश्य निम्नलिखित में से कौन-सा है?

(1) To promote skill development among youth / युवाओं में कौशल विकास को बढ़ावा देना

(2) To promote hygiene and sanitation in rural areas / ग्रामीण क्षेत्रों में स्वच्छता और सफाई को बढ़ावा देना

(3) To provide affordable housing to all urban poor / सभी शहरी गरीबों को सस्ता आवास उपलब्ध कराना

(4) To ensure access to financial services such as banking, savings and insurance / बैंकिंग, बचत और बीमा जैसी वित्तीय सेवाओं तक पहुँच सुनिश्चित करना ✔

Q.25 In which of the following battles did the defeat of Siraj-ud-Daulah, the Nawab of Bengal, mark the beginning of British colonialism in India?

निम्नलिखित में से किस युद्ध में बंगाल के नवाब सिराजुद्दौला को हराकर भारत में ब्रिटिश उपनिवेशवाद की शुरुआत हुई?

(1) Battle of Buxar / बक्सर का युद्ध

(2) Battle of Panipat / पानीपत का युद्ध

(3) Battle of Wandiwash / वांडिवाश का युद्ध

(4) Battle of Plassey / प्लासी का युद्ध ✔

Q.26 Which of the following statements is/are correct regarding simple tissues in plants?

A. Parenchyma is found in the layers below the epidermis in dicotyledonous plants.

B. Sclerenchyma is made up of long, narrow cells with thick and lignified cell walls, which have few or many pits.

पौधों में सरल ऊतकों के संबंध में निम्नलिखित में से कौन-सा/से कथन सही है/हैं?

A. मृदूतक द्विबीजपत्री पौधों में बाह्यत्वचा के नीचे की परतों में पाया जाता है।

B. दृढ़ोतक लंबी, संकरी कोशिकाओं से बना होता है, जिनमें मोटी और लिग्निफाइड कोशिका भित्ति होती है, जिनमें कुछ या अनेक गर्त होते हैं।

(1) Only B / केवल B ✔

(2) Only A / केवल A

(3) Neither A nor B / न तो A और न ही B

(4) Both A and B / A और B दोनों

Q.27 Syria won the 4th Intercontinental Cup football, 2024, held in India, by defeating _____.

सीरिया ने _____ को हराकर भारत में आयोजित चौथा इंटरकांटिनेंटल कप फुटबॉल, 2024 जीता था।

(1) Bangladesh / बांग्लादेश

(2) India / भारत ✔

(3) Maldives / मालदीव

(4) Pakistan / पाकिस्तान

Q.28 Which of the following religions originated in India 2500 years ago?

निम्नलिखित में से किस धर्म की उत्पत्ति 2500 वर्ष पूर्व भारत में हुई थी?

(1) Buddhism / बौद्ध धर्म ✔

(2) Christianity / ईसाई

(3) Islam / इस्लाम

(4) Judaism / यहूदी

Q.29 The artwork "Yakshi with Cage" was used during which period?
"पिंजरे वाली यक्षी (Yakshi with Cage)" कलाकृति किसके काल में प्रयुक्त हुई थी?

(1) Mauryan period / मौर्य काल
(2) Gupta period / गुप्त काल
(3) **Kushan period / कुषाण काल ✔**
(4) Satavahana period / सातवाहन काल

Q.30 Which of the following statements is/are correct?
A. Beriberi disease is caused by the deficiency of vitamin D.
B. Scurvy disease is caused by the deficiency of vitamin C.
निम्नलिखित में से कौन-सा/से कथन सही है/हैं?
A. बेरी बेरी रोग विटामिन D की कमी के कारण होता है।
B. स्कर्वी रोग विटामिन C की कमी के कारण होता है।

(1) Neither A nor B / न तो A और न ही B
(2) **Only B / केवल B ✔**
(3) Both A and B / A और B दोनों
(4) Only A / केवल A

Q.31 Which of the following states/union territories receives the highest annual rainfall?
निम्नलिखित में से किस राज्य/केंद्र शासित प्रदेश में सर्वाधिक वार्षिक वर्षा होती है?

(1) Rajasthan / राजस्थान
(2) Gujarat / गुजरात
(3) Ladakh / लद्दाख
(4) **Meghalaya / मेघालय ✔**

Q.32 Which of the following rivers originates from Lake Mansarovar?
निम्नलिखित में से किस नदी का उद्गम मानसरोवर झील से होता है?

(1) **Brahmaputra / ब्रह्मपुत्र ✔**
(2) Kosi / कोसी
(3) Yamuna / यमुना
(4) Beas / व्यास

Q.33 Which Article of the Indian Constitution provides for the composition of the Council of Ministers?
भारतीय संविधान के किस अनुच्छेद में मंत्रिपरिषद की संरचना का प्रावधान दिया गया है?

(1) Article 77 / अनुच्छेद 77
(2) Article 76 / अनुच्छेद 76
(3) **Article 74 / अनुच्छेद 74 ✔**
(4) Article 75 / अनुच्छेद 75

Q.34 The 'Shri Ram-Janaki Vivah Panchami Festival', celebrated for centuries, is celebrated at which place known as the Ayodhya of Bundelkhand?
सदियों से मनाया जाने वाला 'श्री राम-जानकी विवाह पंचमी महोत्सव' बुंदेलखंड की अयोध्या के नाम से प्रसिद्ध किस स्थान पर मनाया जाता है?

(1) Chitrakoot / चित्रकूट
(2) Mahoba / महोबा
(3) Panna / पन्ना
(4) **Orchha / ओरछा ✔**

Q.35 How many Lok Sabha seats did the National Democratic Alliance (NDA) win in the 2024 general elections, giving it the opportunity to form the government?

2024 के आम चुनावों में राष्ट्रीय जनतांत्रिक गठबंधन (NDA) ने कितनी लोकसभा सीटें जीतीं, जिससे उन्हें सरकार बनाने का अवसर मिला?

(1) 272

(2) 240

(3) 297

(4) 293 ✔

Q.36 Which Article of the Indian Constitution deals with the establishment and constitution of the Supreme Court?

भारतीय संविधान का कौन-सा अनुच्छेद सर्वोच्च न्यायालय की स्थापना और गठन से संबंधित है?

(1) Article 143 / अनुच्छेद 143

(2) Article 155 / अनुच्छेद 155

(3) Article 124 / अनुच्छेद 124 ✔

(4) Article 121 / अनुच्छेद 121

Q.37 Which of the following pharmaceutical companies has launched a biosimilar of the anti-diabetic drug Liraglutide under the brand name Lirafit?

निम्नलिखित में से किस फार्मास्यूटिकल कंपनी ने लिराफिट ब्रांड नाम के अंतर्गत मधुमेह रोधी दवा, लिराग्लूटाइड (Liraglutide) का बायोसिमिलर लॉन्च किया है?

(1) Glenmark / ग्लेनमार्क (Glenmark) ✔

(2) Serum Institute of India / सीरम इंस्टीट्यूट ऑफ इंडिया (Serum Institute of India)

(3) Bharat Biotech / भारत बायोटेक (Bharat Biotech)

(4) Sun Pharma / सन फार्मा (Sun Pharma)

Q.38 Who was the last ruler of the Vardhana Empire?

वर्धन साम्राज्य का अंतिम शासक कौन था?

(1) Rajendra Chola / राजेंद्र चोल

(2) Harshavardhana / हर्षवर्धन ✔

(3) Rajyavardhana / राज्यवर्धन

(4) Kanishka / कनिष्क

Q.39 Which of the following Articles of the Indian Constitution lays down the fundamental duty of every citizen to protect and improve the natural environment including forests and wildlife?

भारतीय संविधान के निम्नलिखित में से किस अनुच्छेद में प्रत्येक नागरिक को वनों और वन्यजीवों सहित प्राकृतिक पर्यावरण की रक्षा करने और उसका संवर्धन करने का मौलिक कर्तव्य दिया गया है?

(1) Article 21 / अनुच्छेद 21

(2) Article 51A (g) / अनुच्छेद 51A (g) ✔

(3) Article 14 / अनुच्छेद 14

(4) Article 32 / अनुच्छेद 32

Q.40 Which Article of the Indian Constitution deals with the official language of the Union?

भारतीय संविधान का कौन-सा अनुच्छेद, संघ की राजभाषा से संबंधित है?

(1) Article 351 / अनुच्छेद 351

(2) Article 350 / अनुच्छेद 350

(3) **Article 343 / अनुच्छेद 343 ✔**

(4) Article 345 / अनुच्छेद 345

Arithmetical and Numerical Ability

Q.41 A solid metallic cuboid weighs 9 kg. If all the dimensions of the original solid metallic cuboid are reduced by one-third, what will be the weight (in kg, up to two decimal places) of the remaining smaller solid cuboid?

(Mass = Density × Volume)

एक ठोस धात्विक घनाभ का भार 9 kg है। यदि मूल ठोस धात्विक घनाभ की सभी विमाओं से एक-तिहाई भाग कम कर दिया जाए, तो बचे लघु ठोस घनाभ का भार (kg में, दशमलव के दो स्थान तक) कितना होगा?

(द्रव्यमान = घनत्व × आयतन)

(1) **0.33 ✔**

(2) 33.33

(3) 0.27

(4) 27.35

Q.42 A car is moving at a speed of 36 km/hr. How many minutes will it take to cover a distance of 3 3/5 km?

एक कार 36 km/hr की चाल से चल रही है।

3 3/5 km की दूरी तय करने में उसे कितने मिनट लगेंगे?

(1) 10

(2) 5

(3) 12

(4) **6 ✔**

Q.43 Find the mean proportional between $(2\sqrt{5} + \sqrt{2})$ and $(2\sqrt{5} - \sqrt{2})$.

$(2\sqrt{5} + \sqrt{2})$ और $(2\sqrt{5} - \sqrt{2})$ के बीच माध्यानुपाती ज्ञात कीजिए।

(1) $\sqrt{13}$

(2) **$3\sqrt{2}$ ✔**

(3) $\sqrt{2}$

(4) $9\sqrt{3}$

Q.44 Saurav deposits a certain sum of money at an interest rate of 20% per annum, compounded annually. At the end of 2 years, he receives a total of ₹66,168. Find the sum (in ₹) deposited by Saurav.

सौरव एक निश्चित धनराशि को 20% वार्षिक ब्याज दर पर जमा करता है, जो वार्षिक रूप से संयोजित होती है। 2 वर्षों के अंत में, वह कुल ₹66,168 प्राप्त करता है। सौरव द्वारा जमा की गई धनराशि (₹ में) ज्ञात कीजिए।

(1) 45,590

(2) 46,330

(3) **45,950 ✔**

(4) 45,601

Q.45 Find the simplified value of the following expression.

$((8)^{1/3} \times \sqrt{9} + 3)^2 \div 81$

निम्नलिखित व्यंजक का सरलीकृत मान ज्ञात कीजिए।

$((8)^{1/3} \times \sqrt{9} + 3)^2 \div 81$

(1) 8

(2) 9

(3) 3

(4) 1 ✔

Q.46 The average of eight numbers is 55, and the average of the first seven numbers is 54. Find the eighth number.

आठ संख्याओं का औसत 55 है, और प्रथम सात संख्याओं का औसत 54 है। आठवीं संख्या ज्ञात कीजिए।

(1) 55

(2) 61

(3) 54

(4) 62 ✔

Q.47 A seller offers a discount of 30% on the marked price of an article and still earns a profit of 10%. By what percentage is the marked price more than the cost price? (Rounded off to two decimal places)

एक विक्रेता किसी वस्तु के अंकित मूल्य पर 30% की छूट प्रदान करता है और फिर भी उसपर 10% का लाभ अर्जित करता है। अंकित मूल्य, क्रय मूल्य से कितने प्रतिशत अधिक है? (दशमलव के दो स्थानों तक पूर्णांकित)

(1) 57.14% ✔

(2) 45.45%

(3) 26.67%

(4) 33.33%

Q.48 A, B and C invested ₹1,20,000, ₹90,000 and ₹60,000, respectively. A invested for 6 months, B for 8 months and C for 12 months. At the end of the year, the total profit was ₹96,000. Before distributing the profit, ₹12,000 was kept aside for office maintenance and C was given an additional ₹4,000 for supervising the project. The remaining profit was divided in the ratio of capital × time. Find the total amount received by C. (Round off your answer to the nearest hundred.)

A, B और C ने क्रमशः ₹1,20,000, ₹90,000 और ₹60,000 का निवेश किया। A ने 6 महीने, B ने 8 महीने और C ने 12 महीने के लिए निवेश किया। वर्ष के अंत में, कुल लाभ ₹96,000 था। लाभ वितरण से पहले, ₹12,000 कार्यालय रखरखाव के लिए रखे गए और C को परियोजना के पर्यवेक्षण के लिए ₹4,000 अतिरिक्त दिए गए। शेष लाभ को पूँजी × समय के अनुपात में बाँटा गया। C को प्राप्त कुल धनराशि ज्ञात कीजिए। (अपने उत्तर को निकटतम सैकड़े में पूर्णांकित कीजिए।)

(1) ₹30,500

(2) ₹30,600

(3) ₹30,800

(4) ₹30,700 ✔

Q.49 The following table shows the sales (in ₹ thousand) of five different products (A, B, C, D and E) in 3 consecutive months.
Study the table carefully and answer the question given below.
Product January February March A 120 150 135 B 200 180 210 C 160 190 180 D 130 120 150 E 140 160 170
Which product has shown the highest average monthly sales over the 3 months?
निम्नलिखित तालिका क्रमागत 3 महीनों में पाँच अलग-अलग उत्पादों (A, B, C, D और E) की बिक्री (₹ हजार में) दर्शाती है। तालिका का ध्यानपूर्वक अध्ययन कीजिए और नीचे दिए गए प्रश्न का उत्तर दीजिए।
उत्पाद जनवरी फरवरी मार्च A 120 150 135 B 200 180 210 C 160 190 180 D 130 120 150 E 140 160 170 किस उत्पाद ने 3 महीनों में सर्वाधिक औसत मासिक बिक्री दर्शाई है?

(1) E
(2) **B ✔**
(3) A
(4) C

Q.50 What % discount is being given in the scheme 'Buy 8, Get 2 Free' on identical articles with the same MRP?
समान MRP वाली समान वस्तुओं पर '8 खरीदें, 2 मुफ्त पाएं' स्कीम में कितने % छूट दी जा रही है?

(1) 21
(2) **20 ✔**
(3) 25
(4) 26

Q.51 In the first year, Arjun's weight increased by 10% and in the next year it increased by a further 15%. In the third year, it decreased by 11%. Find the total change (approximately, in %) in his weight over the given 3 years.
प्रथम वर्ष में अर्जुन के वजन में 10% की वृद्धि हुई तथा अगले वर्ष 15% की और वृद्धि हुई। तीसरे वर्ष में इसमें 11% की कमी हुई। दिए गए 3 वर्षों में उसके वजन में कुल परिवर्तन (लगभग % में) ज्ञात कीजिए।

(1) **12.59% increase / 12.59% वृद्धि ✔**
(2) 10% decrease / 10% कमी
(3) 12.59% decrease / 12.59% कमी
(4) 14% increase / 14% वृद्धि

Q.52 The HCF and LCM of two numbers 105 and 180 are 'x' and 1260, respectively. Find the value of 'x'.
दो संख्याओं 105 और 180 का महत्तम समापवर्तक और लघुत्तम समापवर्त्य क्रमशः 'x' और 1260 है। 'x' का मान ज्ञात कीजिए।

(1) 10
(2) 8
(3) 20
(4) **15 ✔**

Q.53 A seller sold 7 chocolates for a rupee, thereby making a profit of 100%. How many chocolates had he bought for a rupee?
एक विक्रेता ने एक रुपये में 7 चॉकलेट बेचीं, जिससे उसे 100% का लाभ प्राप्त हुआ। उसने एक रुपये में कितनी चॉकलेट खरीदी थीं?

(1) 16
(2) **14 ✔**
(3) 20
(4) 18

Q.54 While covering a distance of 50 km, a person observed that after cycling for 2 hours 20 minutes, the distance covered by him was 3/5 of the remaining distance. What was his speed approximately (in km/hr)?
50 km की दूरी तय करते समय, एक व्यक्ति ने देखा कि 2 घंटे 20 मिनट साइकिल चलाने के बाद, उसके द्वारा तय की गई दूरी, शेष दूरी की 3/5 थी। उसकी चाल लगभग (km/hr में) कितनी थी?

(1) 7.5
(2) **8 ✔**
(3) 9.4
(4) 5.9

Q.55 A person receives ₹6,800 per month as salary. He saves 27% of his salary every month. Find his expenditure (in ₹) per month.
एक व्यक्ति को वेतन के रूप में प्रति माह ₹6,800 प्राप्त होते हैं। वह प्रत्येक माह अपने वेतन का 27% बचाता है। उसका प्रति माह व्यय (₹ में) ज्ञात कीजिए।

(1) 4,900
(2) 4,927
(3) **4,964 ✔**
(4) 5,046

Q.56 The average of 6.5, 10.6, 19.8 and a is 14. Find the value of a.
6.5, 10.6, 19.8 और a का औसत 14 है। a का मान ज्ञात कीजिए।

(1) 20.1
(2) 21.1
(3) **19.1 ✔**
(4) 18.1

Q.57 X can complete a work in d days, Y can do the same work in 12 days. If X and Y together can complete the work in 5 1/7 days, then find d.
X किसी कार्य को d दिनों में पूरा कर सकता है, Y उसी कार्य को 12 दिनों में कर सकता है। यदि X और Y मिलकर कार्य को 5 1/7 दिनों में पूरा कर सकते हैं, तो d ज्ञात कीजिए।

(1) 1/9
(2) 1/8
(3) 8
(4) **9 ✔**

Q.58 Find the volume (in m^3) of a cuboidal tank whose dimensions are given as 10 m × 28 m × 13 m.
उस घनाभाकार टंकी का आयतन (m^3 में) ज्ञात कीजिए, जिसकी विमाएं 10 m × 28 m × 13 m के रूप में दी गई हैं।

(1) 3679
(2) 3610
(3) 3595
(4) **3640 ✔**

Q.59 Find the period (in years) in which a sum of ₹1,200 will amount to ₹2,340 at the rate of 5% per annum simple interest.

वह अवधि (वर्ष में) ज्ञात कीजिए जिसमें ₹1,200 की धनराशि 5% वार्षिक साधारण ब्याज की दर से, ₹2,340 हो जाएगी।

(1) 20

(2) 19 ✔

(3) 18

(4) 21

Q.60 A tank is filled by pipe P in 6 hours and by pipe Q in 10 hours. Pipe P is opened at 8:00 a.m. If pipe Q is also opened at 9:00 a.m., at what time will the tank be filled?

एक टंकी, पाइप P द्वारा 6 घंटे में और पाइप Q द्वारा 10 घंटे में भर जाती है। पाइप P को 8:00 a.m. पर खोला जाता है। यदि पाइप Q को भी 9:00 a.m. पर खोल दिया जाता है, तो टंकी किस समय भर जाएगी?

(1) 12:17:30 p.m.

(2) 12:07:30 p.m. ✔

(3) 11:07:30 a.m.

(4) 11:27:30 a.m.

English Language and Comprehension

Q.61 Select the most appropriate option to fill in the blank.

Sholay is _____ movie that has been popular among people for years now.

(1) more entertain

(2) most entertainer

(3) an entertain

(4) an entertaining ✔

Q.62 Select the most appropriate adjective to fill in the blank.

Tia and Rocky are good friends but the former is better than the _____.

(1) later

(2) last

(3) latter ✔

(4) next

Q.63 Sentences of a paragraph are given below in jumbled order. Arrange the sentences in the correct order to form a meaningful and coherent paragraph.

P - One of the most dramatic examples in nature of ill wind that blows goodness is lightning.

Q - In its aerial form, nitrogen is insoluble, unusable and is in need of transformation.

R - Nitrogen — an essential food for plants — is an abundant resource, with about 22 million tons of it floating over each square mile of earth.

S - Lightning starts the series of chemical reactions that need to happen to nitrogen, ultimately helping it nourish our earth.

(1) RQSP ✔

(2) RSPQ

(3) QPRS

(4) SQRP

Q.64 Select the INCORRECTLY spelt word.

(1) Reconcilation ✔

(2) Abomination

(3) Abbreviation

(4) Accentuation

Q.65 Sentences of a paragraph are given below in jumbled order. Arrange the sentences in the correct order to form a meaningful and coherent paragraph.

A. However, with the increases in both human populations and the use of medications, new kinds of pollutants that are difficult to remove or break down into less toxic substances have become a problem in most wastewater treatment facilities.

B. This has compounded concerns about the consumption of these newer pollutants and their potential effects on health, given their often unknown impact on our digestive systems.

C. Drinking water polluted with microorganisms can result in diseases such as cholera, diarrhoea, and many more, underscoring the importance of water purification before consumption.

D. Hence, efforts are focused on developing better wastewater treatment systems to address these issues and ensure people have access to safe, treated water.

(1) CADB

(2) CBDA

(3) CBAD

(4) CABD ✔

Q.66 Select the option that can be used as a one-word substitute for the given group of words/phrase.

The crime of secretly taking money that is in your care or that belongs to an organisation or business you work for.

(1) Fraud

(2) Exaggeration

(3) Embezzlement ✔

(4) Theft

Q.67 Select the most appropriate article to fill in the blank.

_____ Prime Minister will address the nation tomorrow.

(1) No article needed

(2) The ✔

(3) An

(4) A

Q.68 Select the grammatically correct option to replace the underlined segment in the given sentence. If you don't find any error, mark 'No error' as your answer.

If you run out of stream, you stop doing something because you have no more energy or enthusiasm left.

(1) out of storm

(2) out of steam ✔

(3) out of stock

(4) No error

QuickSarkari.com | WhatsApp Channel | Telegram: t.me/quick_sarkari

Q.69 Select the most appropriate adverb to fill in the blank.
My aunt _____ comes to see us. The last time I met her was four years ago.

(1) often
(2) randomly
(3) **rarely ✔**
(4) always

Q.70 Select the most appropriate articles to fill in the blanks.
There is _____ persistent and erroneous belief that _____ Eskimos have 50 or 70 or 300 words for snow.

(1) an; the
(2) a; an
(3) **a; the ✔**
(4) a; a

Q.71 Select the most appropriate option that can substitute the underlined segment in the given sentence.
Rajiv was working on a very secret formula which took 8 years to develop. Now, it proves that good works take time.

(1) It's not over till it's over
(2) Fortune favours the bold
(3) **Rome was not built in a day ✔**
(4) The pen is mightier than sword

Q.72 Select the option that can be used as a one-word substitute for the underlined word segment in the given sentence.
The author often referred to the legendary warrior with a respectful descriptive phrase that highlighted his bravery and unmatched skill in battle.

(1) **an epithet ✔**
(2) an epigram
(3) an epitaph
(4) an epitome

Q.73 Select the most appropriate ANTONYM of the given word.
Fierce

(1) Savage
(2) Bestial
(3) Ravenous
(4) **Gentle ✔**

Q.74 Select the most appropriate option to fill in the blank.
The sudden demise of his wife moved everyone _____ tears.

(1) at
(2) with
(3) from
(4) **to ✔**

Q.75 Select the most appropriate ANTONYM of the given word.
Summit

(1) Average
(2) **Bottom ✔**
(3) Regular
(4) Head

Q.76

Read the passage and answer the question that follows.
Emotional health is a critical piece of your total wellness. How you feel on the inside influences not only your mental wellness but your physical well-being as well. By learning to practice emotional self-care, you will be more likely to enjoy a happier, healthier life. Emotional self-care refers to the act of becoming aware of and identifying what you are feeling and allowing yourself to channel those feelings in a way that benefits your overall wellness. Your emotions directly correlate to how you feel every day. When you have a healthy attitude about your emotions and know how to express yourself, you will be better equipped to handle the trials and tribulations of life. When you are not in touch with your own emotions, you are more likely to experience depression, stress, anxiety, and other mental health issues. Since everyone experiences different emotions, there are benefits to gaining a better understanding of your own feelings. By practicing emotional self-care, you will give yourself a head start on leading a happier, healthier life. It's natural to hold your emotions inside, but doing so can actually be quite harmful. One of the most important steps in emotional self-care is learning to feel more deeply and becoming more in tune with your feelings. Problems may begin to materialise and then snowball into bigger issues when emotions are internalised, rather than expressed. When you allow yourself to feel, you will begin to heal and experience peace and happiness.

Select the most appropriate synonym of the given word.
Tribulation

(1) Contentment
(2) Uncultured
(3) **Adversity ✔**
(4) Pleasure

QuickSarkari.com | WhatsApp Channel | Telegram: t.me/quick_sarkari

Q.77

Read the passage and answer the question that follows.
Emotional health is a critical piece of your total wellness. How you feel on the inside influences not only your mental wellness but your physical well-being as well. By learning to practice emotional self-care, you will be more likely to enjoy a happier, healthier life. Emotional self-care refers to the act of becoming aware of and identifying what you are feeling and allowing yourself to channel those feelings in a way that benefits your overall wellness. Your emotions directly correlate to how you feel every day. When you have a healthy attitude about your emotions and know how to express yourself, you will be better equipped to handle the trials and tribulations of life. When you are not in touch with your own emotions, you are more likely to experience depression, stress, anxiety, and other mental health issues. Since everyone experiences different emotions, there are benefits to gaining a better understanding of your own feelings. By practicing emotional self-care, you will give yourself a head start on leading a happier, healthier life. It's natural to hold your emotions inside, but doing so can actually be quite harmful. One of the most important steps in emotional self-care is learning to feel more deeply and becoming more in tune with your feelings. Problems may begin to materialise and then snowball into bigger issues when emotions are internalised, rather than expressed. When you allow yourself to feel, you will begin to heal and experience peace and happiness.

What is the meaning of the word 'snowball' here?

(1) A type of cocktail
(2) To lower something
(3) A ball made of snow
(4) **To quickly grow bigger ✔**

Q.78

Read the passage and answer the question that follows.
Emotional health is a critical piece of your total wellness. How you feel on the inside influences not only your mental wellness but your physical well-being as well. By learning to practice emotional self-care, you will be more likely to enjoy a happier, healthier life. Emotional self-care refers to the act of becoming aware of and identifying what you are feeling and allowing yourself to channel those feelings in a way that benefits your overall wellness. Your emotions directly correlate to how you feel every day. When you have a healthy attitude about your emotions and know how to express yourself, you will be better equipped to handle the trials and tribulations of life. When you are not in touch with your own emotions, you are more likely to experience depression, stress, anxiety, and other mental health issues. Since everyone experiences different emotions, there are benefits to gaining a better understanding of your own feelings. By practicing emotional self-care, you will give yourself a head start on leading a happier, healthier life. It's natural to hold your emotions inside, but doing so can actually be quite harmful. One of the most important steps in emotional self-care is learning to feel more deeply and becoming more in tune with your feelings. Problems may begin to materialise and then snowball into bigger issues when emotions are internalised, rather than expressed. When you allow yourself to feel, you will begin to heal and experience peace and happiness.

Which of the following is true according to the passage?3

(1) **Emotional self-care benefits your overall wellness. ✔**
(2) When you know how to express yourself, you will invite jealousy and hatred.
(3) How you feel on the inside does not influences your physical well-being as well.
(4) By practicing emotional self-care, you will develop the capacity to heal others.

Q.79

Read the passage and answer the question that follows.
Emotional health is a critical piece of your total wellness. How you feel on the inside influences not only your mental wellness but your physical well-being as well. By learning to practice emotional self-care, you will be more likely to enjoy a happier, healthier life. Emotional self-care refers to the act of becoming aware of and identifying what you are feeling and allowing yourself to channel those feelings in a way that benefits your overall wellness. Your emotions directly correlate to how you feel every day. When you have a healthy attitude about your emotions and know how to express yourself, you will be better equipped to handle the trials and tribulations of life. When you are not in touch with your own emotions, you are more likely to experience depression, stress, anxiety, and other mental health issues. Since everyone experiences different emotions, there are benefits to gaining a better understanding of your own feelings. By practicing emotional self-care, you will give yourself a head start on leading a happier, healthier life. It's natural to hold your emotions inside, but doing so can actually be quite harmful. One of the most important steps in emotional self-care is learning to feel more deeply and becoming more in tune with your feelings. Problems may begin to materialise and then snowball into bigger issues when emotions are internalised, rather than expressed. When you allow yourself to feel, you will begin to heal and experience peace and happiness.

Select the most appropriate option to complete the following sentence.
Healing begins when _____.

(1) you are not in tune with your emotions
(2) **you allow yourself to feel your emotions ✔**
(3) you listen to your seniors and well-wishers
(4) you internalise your emotions without expressing

QuickSarkari.com | WhatsApp Channel | Telegram: t.me/quick_sarkari

Q.80

Read the passage and answer the question that follows.
Emotional health is a critical piece of your total wellness. How you feel on the inside influences not only your mental wellness but your physical well-being as well. By learning to practice emotional self-care, you will be more likely to enjoy a happier, healthier life. Emotional self-care refers to the act of becoming aware of and identifying what you are feeling and allowing yourself to channel those feelings in a way that benefits your overall wellness. Your emotions directly correlate to how you feel every day. When you have a healthy attitude about your emotions and know how to express yourself, you will be better equipped to handle the trials and tribulations of life. When you are not in touch with your own emotions, you are more likely to experience depression, stress, anxiety, and other mental health issues. Since everyone experiences different emotions, there are benefits to gaining a better understanding of your own feelings. By practicing emotional self-care, you will give yourself a head start on leading a happier, healthier life. It's natural to hold your emotions inside, but doing so can actually be quite harmful. One of the most important steps in emotional self-care is learning to feel more deeply and becoming more in tune with your feelings. Problems may begin to materialise and then snowball into bigger issues when emotions are internalised, rather than expressed. When you allow yourself to feel, you will begin to heal and experience peace and happiness.

When do we feel mental problems, as per the passage?

(1) When we allow ourselves to feel
(2) When we overthink about things
(3) When any obstacle comes in our lives
(4) **When we are not in touch with our emotions ✔**

Hindi Language and Comprehension

Q.81 दिए गए विकल्प में से क्रिया के उचित भेद को चुन कर वाक्य पूर्ण करें - रोहन ने किताब खरीदी। वाक्य में ..... क्रिया है।

(1) नामधातु क्रिया
(2) अकर्मक क्रिया
(3) **सकर्मक क्रिया ✔**
(4) प्रेरणार्थक क्रिया

Q.82 नीचे दिए गए चार विकल्पों में से कोई एक सही समान अर्थ वाले शब्द का चुनाव कीजिए।
वृत्ति-

(1) वृत्तान्त
(2) वर्णिक छन्द
(3) **स्वभाव ✔**
(4) आच्छादित

Q.83 दिए गए वाक्य के किस भाग में त्रुटि है?
"अहा! कितना रमणीय पर्वतिय दृश्य है!"

(1) अहा!
(2) कितना
(3) रमणीय
(4) **पर्वतिय दृश्य है ✔**

Q.84 "किसी के दुःख से दुखी होकर उस पर दया करना" निम्न वाक्यांश के लिए एक शब्द कौन सा है?

(1) अभिलापा

(2) अभिनन्दन

(3) **अनुकम्पा ✔**

(4) फलाहारी

Q.85 दिए गए वाक्यों में से सही वाक्य क्रम का चयन कीजिए।

(1) लिखाई दुरुस्त तुम अपनी करो।

(2) दुरुस्त अपनी लिखाई तुम करो।

(3) लिखाई तुम अपनी दुरुस्त करो।

(4) **तुम अपनी लिखाई दुरुस्त करो। ✔**

Q.86 उपयुक्त विशेषण शब्द से वाक्य पूर्ण करें - _____केले बीस रूपए के हैं

(1) **दो दर्जन ✔**

(2) आधा

(3) एक

(4) सैकड़ों

Q.87 'अंधे के आगे रोना,अपना दीदा खोना' लोकोक्ति का सही अर्थ है-

(1) **दुःख सुनाने पर ध्यान न देना ✔**

(2) मूर्ख और गुणगान का समान आदर

(3) अनहोनी होना

(4) जब मर गये तो फिर चिंता क्या

Q.88 निम्नलिखित में से कौन-सा एक पर्याय युग्म अशुद्ध है?

(1) इच्छा - वांछा

(2) **दुर्बोध - निमित्त ✔**

(3) सरोज - अम्बुज

(4) व्योम - आकाश

Q.89 'लोमड़ी' का तत्सम शब्द है-

(1) **लोमशा ✔**

(2) लोष्ट

(3) लक्ष

(4) मंडूक

Q.90 उपयुक्त कारक चिह्न से वाक्य पूर्ण करें - ये सब बातें सुनीता ___ ही बताई थी

(1) की

(2) **ने ✔**

(3) से

(4) में

QuickSarkari.com | WhatsApp Channel | Telegram: t.me/quick_sarkari

Q.91 निम्नलिखित कालांकित वाक्यांश के लिए विकल्प में से एक शब्द का चयन करें।
भ्रष्टाचार के आरोपों के कारण बाबू को अनुशासनात्मक कार्रवाई की प्रक्रिया के फलस्वरूप पद से नीचे उतरना पड़ा।

(1) प्रोन्नति
(2) **पदावनति ✔**
(3) पदोन्नति
(4) पदावधि

Q.92 'व्याकुल' का पर्यायवाची क्या है?

(1) शिलाघात
(2) **व्यग्र ✔**
(3) महिषी
(4) पिशुन

Q.93 'इमली के पात पर बारात का डेरा' लोकोक्ति का अर्थ है-

(1) **असम्भव बात ✔**
(2) गुण के विपरीत नाम
(3) एक दोष के साथ दूसरा दोष भी
(4) सब कुछ निराला है

Q.94 दिए गए वाक्य के किस भाग में त्रुटि है?
"जिन छात्रों ने परीश्रम किया वे उत्तीर्ण हो गए।"

(1) जिन छात्रों ने
(2) **परीश्रम किया ✔**
(3) हो गए
(4) वे उत्तीर्ण

Q.95 नीचे दिए गए वाक्य खंडों को सही क्रम में व्यवस्थित करें - 1.परिवार के साथ 2.के साथ संतुलन 3.परिवार और बच्चों की 4.साध रही हैं 5.वर्तमान में मांएं 6.पेशेवर जिम्मेदारियों

(1) 246135
(2) **531624 ✔**
(3) 316245
(4) 562431

Q.96

निम्नलिखित गद्यांश को पढ़कर पूछे गए प्रश्नों के उत्तर दें – भाषा अपने विचारों,आवश्यकताओं की संतुष्टि और दृष्टिकोणों के विनिमय का साधन है। मानव जाति के विभिन्न समूह विभिन्न भाषाएं बोलते हैं,क्योंकि संसार की समस्त भाषाएं एक ही समय में नहीं जन्मीं थी। जिस प्रकार विभिन्न राष्ट्र जन्म लेते हैं,विकसित होते हैं तथा मृत्यु को प्राप्त होते हैं,ठीक ऐसी ही स्थिति भाषाओं की है। वही मनुष्य वास्तव में जीवित है जो बढ़ता है और प्रगति करता है,क्योंकि परिवर्तन जीवन का नियम है। परियों की कथाओं और पौराणिक कथाओं में अद्भुत वीर गीतों और कविताओं में प्रायः उन सुखी राजा और रानियों की कहानी कही जाती है जिसको परमात्मा ने केवल एक पुत्र या पुत्री प्रदान की। ये राजकुमार और राजकुमारियाँ सदैव अपने साथ मोहक सौन्दर्य एवं सुख लेकर आते हैं। इन कहानियों में सर्वाधिक साहसिक कार्य भी, जिनमें किसी दुष्टा परी की भविष्यवाणी के अनुसार किसी भूत-प्रेत का हस्तक्षेप होता है, केवल नायक की सफलता पर बल देने के लिए घटित होते हैं।

उपर्युक्त गद्यांश के लिए उचित शीर्षक का चयन करें।

(1) कहानियाँ
(2) गीत तथा कथा
(3) राजा और रानी की कहानियाँ
(4) **भाषा और उसके तत्त्व ✔**

Q.97

निम्नलिखित गद्यांश को पढ़कर पूछे गए प्रश्नों के उत्तर दें – भाषा अपने विचारों,आवश्यकताओं की संतुष्टि और दृष्टिकोणों के विनिमय का साधन है। मानव जाति के विभिन्न समूह विभिन्न भाषाएं बोलते हैं,क्योंकि संसार की समस्त भाषाएं एक ही समय में नहीं जन्मीं थी। जिस प्रकार विभिन्न राष्ट्र जन्म लेते हैं,विकसित होते हैं तथा मृत्यु को प्राप्त होते हैं,ठीक ऐसी ही स्थिति भाषाओं की है। वही मनुष्य वास्तव में जीवित है जो बढ़ता है और प्रगति करता है,क्योंकि परिवर्तन जीवन का नियम है। परियों की कथाओं और पौराणिक कथाओं में अद्भुत वीर गीतों और कविताओं में प्रायः उन सुखी राजा और रानियों की कहानी कही जाती है जिसको परमात्मा ने केवल एक पुत्र या पुत्री प्रदान की। ये राजकुमार और राजकुमारियाँ सदैव अपने साथ मोहक सौन्दर्य एवं सुख लेकर आते हैं। इन कहानियों में सर्वाधिक साहसिक कार्य भी, जिनमें किसी दुष्टा परी की भविष्यवाणी के अनुसार किसी भूत-प्रेत का हस्तक्षेप होता है, केवल नायक की सफलता पर बल देने के लिए घटित होते हैं।

'हस्तक्षेप' का सही अर्थ क्या है?

(1) पैर देना
(2) हाथ देना
(3) **दखलंदाज़ी** ✔
(4) आक्षेप लगाना

Q.98

निम्नलिखित गद्यांश को पढ़कर पूछे गए प्रश्नों के उत्तर दें – भाषा अपने विचारों,आवश्यकताओं की संतुष्टि और दृष्टिकोणों के विनिमय का साधन है। मानव जाति के विभिन्न समूह विभिन्न भाषाएं बोलते हैं,क्योंकि संसार की समस्त भाषाएं एक ही समय में नहीं जन्मीं थी। जिस प्रकार विभिन्न राष्ट्र जन्म लेते हैं,विकसित होते हैं तथा मृत्यु को प्राप्त होते हैं,ठीक ऐसी ही स्थिति भाषाओं की है। वही मनुष्य वास्तव में जीवित है जो बढ़ता है और प्रगति करता है,क्योंकि परिवर्तन जीवन का नियम है। परियों की कथाओं और पौराणिक कथाओं में अद्भुत वीर गीतों और कविताओं में प्रायः उन सुखी राजा और रानियों की कहानी कही जाती है जिसको परमात्मा ने केवल एक पुत्र या पुत्री प्रदान की। ये राजकुमार और राजकुमारियाँ सदैव अपने साथ मोहक सौन्दर्य एवं सुख लेकर आते हैं। इन कहानियों में सर्वाधिक साहसिक कार्य भी, जिनमें किसी दुष्टा परी की भविष्यवाणी के अनुसार किसी भूत-प्रेत का हस्तक्षेप होता है, केवल नायक की सफलता पर बल देने के लिए घटित होते हैं।

'विनिमय' का पर्यायवाची क्या है?

(1) विनम्रता
(2) शिष्टता
(3) **आदान प्रदान** ✔
(4) नम्रता

Q.99

निम्नलिखित गद्यांश को पढ़कर पूछे गए प्रश्नों के उत्तर दें – भाषा अपने विचारों,आवश्यकताओं की संतुष्टि और दृष्टिकोणों के विनिमय का साधन है। मानव जाति के विभिन्न समूह विभिन्न भाषाएं बोलते हैं,क्योंकि संसार की समस्त भाषाएं एक ही समय में नहीं जन्मीं थी। जिस प्रकार विभिन्न राष्ट्र जन्म लेते हैं,विकसित होते हैं तथा मृत्यु को प्राप्त होते हैं,ठीक ऐसी ही स्थिति भाषाओं की है। वही मनुष्य वास्तव में जीवित है जो बढ़ता है और प्रगति करता है,क्योंकि परिवर्तन जीवन का नियम है। परियों की कथाओं और पौराणिक कथाओं में अद्भुत वीर गीतों और कविताओं में प्रायः उन सुखी राजा और रानियों की कहानी कही जाती है जिसको परमात्मा ने केवल एक पुत्र या पुत्री प्रदान की। ये राजकुमार और राजकुमारियाँ सदैव अपने साथ मोहक सौन्दर्य एवं सुख लेकर आते हैं। इन कहानियों में सर्वाधिक साहसिक कार्य भी, जिनमें किसी दुष्टा परी की भविष्यवाणी के अनुसार किसी भूत-प्रेत का हस्तक्षेप होता है, केवल नायक की सफलता पर बल देने के लिए घटित होते हैं।

'सफलता' का विलोम शब्द चुनिए ।

(1) अफलता
(2) **विफलता** ✔
(3) निहफलता
(4) कूफलता

Q.100

निम्नलिखित गद्यांश को पढ़कर पूछे गए प्रश्नों के उत्तर दें – भाषा अपने विचारों,आवश्यकताओं की संतुष्टि और दृष्टिकोणों के विनिमय का साधन है। मानव जाति के विभिन्न समूह विभिन्न भाषाएं बोलते हैं,क्योंकि संसार की समस्त भाषाएं एक ही समय में नहीं जन्मीं थी। जिस प्रकार विभिन्न राष्ट्र जन्म लेते हैं,विकसित होते हैं तथा मृत्यु को प्राप्त होते हैं,ठीक ऐसी ही स्थिति भाषाओं की है। वही मनुष्य वास्तव में जीवित है जो बढ़ता है और प्रगति करता है,क्योंकि परिवर्तन जीवन का नियम है। परियों की कथाओं और पौराणिक कथाओं में अद्भुत वीर गीतों और कविताओं में प्रायः उन सुखी राजा और रानियों की कहानी कही जाती है जिसको परमात्मा ने केवल एक पुत्र या पुत्री प्रदान की। ये राजकुमार और राजकुमारियाँ सदैव अपने साथ मोहक सौन्दर्य एवं सुख लेकर आते हैं। इन कहानियों में सर्वाधिक साहसिक कार्य भी, जिनमें किसी दुष्टा परी की भविष्यवाणी के अनुसार किसी भूत-प्रेत का हस्तक्षेप होता है, केवल नायक की सफलता पर बल देने के लिए घटित होते हैं।

उपर्युक्त गद्यांश का सारांश चुनिए ।

(1) संसार की भाषाओं की उत्पत्ति के बारे में जानना।

(2) भाषा की आवश्यकताओं को समझकर हमारे राज्य रानी के बारे में जानना।

(3) भाषाओं की उत्पत्ति के समय को जानना तथा भाषा की विधियों के माध्यम से पौराणिक कथाओं के कथानक को जानना । ✔

(4) पौराणिक कथाओं का महत्त्व समझना और कथा का उद्धरण देना।

Assistant Teacher (Nursery)

Q.101 Which of the following best supports children's emergent writing skills?

निम्नलिखित में से कौन-सा, बच्चों के उन्मज्जी (emergent) लेखन कौशल का सर्वोत्तम रूप से समर्थन करता है?

(1) Only reading stories aloud to children, without conducting writing activities / बच्चों को केवल कहानियाँ पढ़कर सुनाना, लेखन गतिविधियाँ नहीं करवाना

(2) Encouraging children to write and draw independently / बच्चों को स्वतंत्र रूप से लिखने एवं चित्र बनाने के लिए प्रोत्साहित करना ✔

(3) Making children memorise spelling lists / बच्चों को वर्तनी सूचियाँ (spelling lists) याद कराना

(4) Using worksheets for specific copying practice / विशिष्ट कॉपी करके अभ्यास करने वाली वर्कशीटों का उपयोग करना

Q.102 How can the outdoor environment be adapted for children with special needs?

विशेष आवश्यकता वाले बच्चों के लिए बाहरी परिवेश को किस प्रकार अनुकूलित किया जा सकता है?

(1) By providing separate and isolated areas / पृथक और विलग क्षेत्र प्रदान करके

(2) By restricting their access to the outdoor environment / बाहरी परिवेश तक उनकी पहुँच को प्रतिबंधित करके

(3) By ignoring their needs and abilities / उनकी आवश्यकताओं और क्षमताओं की उपेक्षा करके

(4) By incorporating adaptive equipment and materials / अनुकूली उपकरण और सामग्रियाँ समाविष्ट करके ✔

Q.103 Identify the activities that support arithmetic readiness in early childhood.
a. Understanding the concepts of less or more using groups of objects
b. Writing letters
c. Making patterns with objects and shapes
d. Exploring the concepts of length, weight and capacity
उन गतिविधियों की पहचान कीजिए जो प्रारंभिक बाल्यावस्था में अंकगणितीय तत्परता (arithmetic readiness) का समर्थन करती हैं।
a. वस्तुओं के समूह का उपयोग करके कम या ज़्यादा की संकल्पनाओं को समझना
b. अक्षर लिखना
c. वस्तुओं और आकृतियों से पैटर्न बनाना
d. लंबाई, भार और धारिता की संकल्पनाओं की खोज करना

(1) b, c and d / b, c और d
(2) a, b and c / a, b और c
(3) **a, c and d / a, c और d ✔**
(4) a, b and d / a, b और d

Q.104 Which of the following is a natural resource whose importance children should understand?
निम्नलिखित में से कौन-सा प्राकृतिक संसाधन है, जिसका महत्व बच्चों को समझना चाहिए?

(1) Glass / काँच
(2) **Water / जल ✔**
(3) Plastic / प्लास्टिक
(4) Brick / ईंट

Q.105 Which classroom material best supports young children's understanding of basic measurement?
कौन-सी कक्षा सामग्री, छोटे बच्चों की मूल मापन की समझ का सर्वोत्तम रूप से समर्थन करती है?

(1) Only a quiet reading corner / केवल शांत रीडिंग कॉर्नर
(2) Only storybooks / केवल कहानियों वाली पुस्तकें
(3) **Plastic measuring cups and sand / प्लास्टिक के मापने वाले कप एवं रेत ✔**
(4) Flashcards with long words / लंबे शब्दों वाले फ़्लैशकार्ड

Q.106 Match the following measurement concepts with the appropriate activities.
1. Finding weight a. Using a ruler
2. Measuring length b. Making a bead necklace
3. Recognising patterns c. Using a weighing balance
4. Finding area d. Covering a surface with tiles
निम्नलिखित मापन अवधारणाओं को, उपयुक्त क्रियाकलापों से सुमेलित कीजिए।
1. वजन ज्ञात करना a. रूलर का उपयोग
2. लंबाई मापना b. मोतियों का हार बनाना
3. प्रतिरूप पहचानना c. तराजू का उपयोग
4. क्षेत्रफल ज्ञात करना d. किसी सतह को टाइलों से कवर करना

(1) 1-b, 2-a, 3-d, 4-c
(2) 1-d, 2-a, 3-c, 4-b
(3) 1-a, 2-c, 3-b, 4-d
(4) **1-c, 2-a, 3-b, 4-d ✔**

Q.107 With reference to a child's surroundings, which of the following statements is true regarding the global environment?

किसी बच्चे के परिवेश के संदर्भ में वैश्विक पर्यावरण के संबंध में, निम्नलिखित में से कौन-सा कथन सत्य है?

(1) It includes only the natural environment. / इसमें केवल प्राकृतिक पर्यावरण शामिल है।

(2) The child has daily personal contact with it. / बच्चे का इसके साथ नित्य व्यक्तिगत संपर्क होता है।

(3) **It is very far away, but can affect the child indirectly. / यह बहुत दूर है, लेकिन बच्चे को अप्रत्यक्ष रूप से प्रभावित कर सकता है। ✔**

(4) It affects the child directly every day. / यह बच्चे को प्रतिदिन प्रत्यक्ष रूप से प्रभावित करता है।

Q.108 Which of the following helps in developing neat handwriting?

निम्नलिखित में से कौन-सा, स्वच्छ लिखावट विकसित करने में मदद करता है?

(1) Cursive writing, speed, visual material / घुमावदार लेखन, गति, दृश्य सामग्री

(2) Fast writing, strong grip, coloured pens / तेज़ लेखन, मज़बूत पकड़, रंगीन पेन

(3) Slanted letters, soft grip, punctuation marks / तिरछे अक्षर, नरम पकड़, विराम चिह्न

(4) **Posture, rhythmic movement, letter formation / आसन, लयबद्ध गति, अक्षर रचना ✔**

Q.109 In early childhood mathematics education, what is the primary purpose of using manipulatives?

प्रारंभिक बाल्यावस्था गणित शिक्षा में, जोड़-तोड़ (manipulatives) का उपयोग करने का प्राथमिक उद्देश्य क्या होता है?

(1) To develop motor skills / पेशीय कौशल विकसित करना

(2) To keep children busy / बच्चों को व्यस्त रखना

(3) **To provide a concrete understanding of abstract concepts / अमूर्त अवधारणाओं की मूर्त समझ प्रदान करना ✔**

(4) To teach language skills / भाषा-कौशल सिखाना

Q.110 Which of the following factors of diversity is considered to be a classification system that is used to categorise humans into distinct populations or groups by anatomical features related to body structure or physique?

विविधता के निम्नलिखित में से किस कारक को एक ऐसी वर्गीकरण प्रणाली माना जाता है, जिसका उपयोग शरीर की संरचना या काया से संबंधित शारीरिक विशेषताओं के आधार पर मनुष्यों को विशिष्ट आबादियों या समूहों में वर्गीकृत करने के लिए किया जाता है?

(1) Gender / लिंग

(2) Socio economic status / सामाजिक-आर्थिक स्थिति

(3) Ethnicity / नृजातीयता

(4) **Race / प्रजाति ✔**

Q.111 How should the indoor learning environment be arranged to promote socialisation and interaction?

समाजीकरण और अन्तर्क्रिया को बढ़ावा देने के लिए आंतरिक अधिगम परिवेश की व्यवस्था किस प्रकार की जानी चाहिए?

(1) In separate, individual areas / अलग-अलग, व्यक्तिगत क्षेत्रों में

(2) In rows and columns / पंक्तियों और स्तंभों में

(3) In a large, open space / एक विशाल, खुले स्थान में

(4) **In small groups / छोटे समूहों के ग्रुप्स में ✔**

Q.112 Select the most appropriate meaning of the given phrase.
Let the cat out of the bag
दिए गए वाक्यांश के सबसे उपयुक्त अर्थ का चयन करें।
बिल्ली को थैले से बाहर निकालो (Let the cat out of the bag)

(1) To start a fight / लड़ाई शुरू करना (To start a fight)
(2) **To reveal a secret unintentionally / अनजाने में कोई गुप्त बात उजागर करना (To reveal a secret unintentionally) ✔**
(3) To let someone escape / किसी को पलायन करने देना (To let someone escape)
(4) To free a trapped animal / किसी फँसे हुए जानवर को मुक्त करना (To free a trapped animal)

Q.113 Why is it important for children to understand the concept of patterns before learning addition and subtraction?
बच्चों के लिए जोड़ और घटाना सीखने से पहले पैटर्न की अवधारणा को समझना क्यों महत्वपूर्ण है?

(1) Patterns are more interesting / पैटर्न अधिक दिलचस्प होते हैं
(2) Patterns are frequently used in daily life / दैनिक जीवन में पैटर्न का बहुधा उपयोग किया जाता है
(3) **Learning patterns helps in recognising sequences and relationships between numbers / सीखने के पैटर्न संख्याओं के बीच अनुक्रम और संबंधों को पहचानने में सहायता करते हैं ✔**
(4) Patterns are easy to learn / पैटर्न सीखना आसान है

Q.114 Match the following literacy reading strategies with their purposes.
Strategies Purposes
A. Skimming 1. Quickly getting the general idea of the content
B. Scanning 2. Locating specific information
C. Intensive Reading 3. Fully understanding and analysing the text
D. Extensive Reading 4. Enjoying reading and improving language skills
निम्नलिखित साक्षरता पठन (literacy reading) रणनीतियों का उनके उद्देश्यों से मिलान कीजिए।
रणनीतियां उद्देश्य
A. क्षिप्रगामी (Skimming) 1. विषय-वस्तु के सामान्य विचार शीघ्रता से प्राप्त करना
B. क्रमवीक्षण (Scanning) 2. विशिष्ट सूचना का पता लगाना
C. गहन पठन (Intensive Reading) 3. पाठ को पूर्णतया समझना और उसका विश्लेषण करना
D. विस्तृत पठन (Extensive Reading) 4. पढ़ने का आनंद लेना और भाषा कौशल में सुधार करना

(1) A-2, B-1, C-4, D-3
(2) A-4, B-3, C-2, D-1
(3) **A-1, B-2, C-3, D-4 ✔**
(4) A-3, B-4, C-1, D-2

Q.115 According to the principle of active participation, which activity promotes active participation in literacy learning?
सक्रिय सहभागिता के सिद्धांत के अनुसार, कौन-सी गतिविधि साक्षरता अधिगम में सक्रिय सहभागिता को बढ़ावा देती है?

(1) Completing an individual reading comprehension worksheet / वैयक्तिक पठन बोध वर्कशीट को पूर्ण करना
(2) **Participating in a small-group discussion about a story / किसी कहानी के संबंध में एक छोटे-समूह की परिचर्चा में भाग लेना ✔**
(3) Listening to a teacher's lecture on grammar rules / व्याकरण के नियमों पर शिक्षक का व्याख्यान सुनना
(4) Watching an educational video alone / अकेले कोई शैक्षिक वीडियो देखना

Q.116 Match the definitions of play with their proponents.
1) A joyful, spontaneous, creative activity in which man finds his fullest experience a) Gross
2) Instinctive practice without any serious intent b) Montessori
3) Like the ceaseless activity of a flowing stream or a growing tree c) Hurlock
4) Any activity directed towards enjoyment d) Ross

क्रीड़ा की परिभाषाओं को उनके प्रतिपादकों के साथ सुमेलित कीजिए।
1) आनंदमय, स्वतःस्फूर्त रचनात्मक गतिविधि जिसमें मनुष्य को अपना पूर्णतम अनुभव प्राप्त होता है a) ग्रॉस (Gross)
2) बिना किसी गंभीर आशय के सहज अभ्यास b) मोंटेसरी (Montessori)
3) बहती धारा या बढ़ते वृक्ष की अनवरत गतिविधि के सदृश c) हरलॉक (Hurlock)
4) कोई भी गतिविधि जो आनंद की ओर निर्देशित हो d) रॉस (Ross)

(1) 1 – d, 2 – c, 3 – b, 4 – a
(2) 1 – c, 2 – a, 3 – d, 4 – b
(3) **1 – d, 2 – a, 3 – b, 4 – c ✔**
(4) 1 – a, 2 – b, 3 – c, 4 – d

Q.117 Which of the following statements is/are true or false?
Statement 1: Dividing words into small segments and reading them in segments allows the brain to focus on these small segments.
Statement 2: When the brain focuses on small segments, its ability to understand the meaning of the whole text increases.

निम्नलिखित में से कौन-सा/से कथन सत्य या असत्य है/हैं?
कथन 1: शब्दों को छोटे-छोटे खंडों में विभक्त करके और खंडित रूप से पढ़ने से मस्तिष्क इन छोटे-छोटे खंडों पर ध्यान केंद्रित कर सकता है।
कथन 2: जब मस्तिष्क छोटे-छोटे खंडों पर ध्यान केंद्रित करता है, तो पूरे पाठ का अर्थ समझने की उसकी क्षमता में वृद्धि होती है।

(1) Statement 1 is false and statement 2 is true. / कथन 1 असत्य है और कथन 2 सत्य है।
(2) **Statement 1 is true and statement 2 is false. / कथन 1 सत्य है और कथन 2 असत्य है। ✔**
(3) Both statements are true. / दोनों कथन सत्य हैं।
(4) Both statements are false. / दोनों कथन असत्य हैं।

Q.118 During early childhood, vocabulary development is _____.

प्रारंभिक बाल्यावस्था के दौरान, शब्दावली का विकास _____ होता है।

(1) slow and limited to everyday words / मंद और प्रतिदिन के शब्दों तक सीमित
(2) complete by the age of 3 years / 3 वर्ष की आयु तक पूर्ण
(3) **rapid and dramatic between 18 months and 6 years / 18 माह से 6 वर्ष के बीच द्रुत और नाटकीय ✔**
(4) dependent only on school instructions / केवल स्कूली निर्देशों पर निर्भर

Q.119 In the context of mathematical learning, what is the full form of the abbreviation E–L–P–S?

गणितीय अधिगम के संदर्भ में, संक्षिप्त नाम E–L–P–S का पूर्ण रूप क्या है?

(1) **Experience – Language – Pictures – Symbols / Experience – Language – Pictures – Symbols (एक्सपीरियंस – लैंग्वेज – पिक्चर – सिंबल) ✔**
(2) Example – Logic – Practice – Symbols / Example – Logic – Practice – Symbols (एग्जाम्प्ल – लॉजिक – प्रैक्टिस – सिंबल)
(3) Explore – Learn – Perform – Solve / Explore – Learn – Perform – Solve (एक्स्प्लोर – लर्न – परफॉर्म – सॉल्व)
(4) Estimation – Learning – Process – Symbols / Estimation – Learning – Process – Symbols (एस्टिमेशन – लर्निंग – प्रोसेस – सिंबल)

Q.120 Which of the following activities help in developing measurement skills in early childhood?
a. Comparing the heights of different objects
b. Measuring ingredients while cooking as pretend play
c. Playing with water to understand volume
d. Listening to music

निम्नलिखित में से कौन-सी गतिविधियां, प्रारंभिक बाल्यावस्था में मापन कौशल विकसित करने में सहायक होती हैं?
a. विभिन्न वस्तुओं की ऊंचाई की तुलना करना
b. काल्पनिक खेल के रूप में खाना पकाने के दौरान सामग्री को मापना
c. आयतन समझने के लिए पानी से खेलना
d. संगीत सुनना

(1) a, b and d / a, b और d
(2) a, c and d / a, c और d
(3) **a, b and c / a, b और c ✔**
(4) b, c and d / b, c और d

Q.121 Universal access to integrated child development including ECCE for all young children remains the primary responsibility of the government through _____ (ICDS).

सभी छोटे बच्चों के लिए ECCE सहित एकीकृत बाल विकास तक सार्वभौमिक पहुँच _____ (ICDS) के माध्यम से सरकार का प्राथमिक उत्तरदायित्व बनी हुई है।

(1) Integrated Children Developmental Service
(2) **Integrated Child Development Service ✔**
(3) Integrated Child Developmental Service
(4) Integrated Children Development Service

Q.122 Which component of the ECCE curriculum focuses on the physical, cognitive and socio-emotional development of children?

ECCE पाठ्यक्रम का कौन-सा घटक बच्चों के शारीरिक, संज्ञानात्मक और सामाजिक-संवेगात्मक विकास पर केंद्रित होता है?

(1) Standardised test preparation / मानकीकृत परीक्षा तैयारी
(2) Advanced literacy skills / उन्नत साक्षरता कौशल
(3) Rigorous academic assessment / कठोर शैक्षणिक मूल्यांकन
(4) **Holistic development through activities such as drama play and group games / नाटक खेल और समूह खेलों जैसी गतिविधियों के माध्यम से समग्र विकास ✔**

Q.123 How does the knowledge of child development and learning inform a teacher's decisions about the learning environment?

बाल विकास और अधिगम का ज्ञान, अधिगम परिवेश के संबंध में शिक्षक के निर्णयों को किस प्रकार सूचित करता है?

(1) It provides detailed individual assessments for each child. / यह प्रत्येक बच्चे के लिए विस्तृत वैयक्तिक आकलन प्रदान करता है।
(2) It specifies the exact materials and quantities needed for each activity. / यह प्रत्येक गतिविधि के लिए आवश्यक सटीक सामग्रियों और मात्राओं को निर्दिष्ट करता है।
(3) **It helps in predicting what experiences will likely promote optimal development. / यह इस बात का पूर्वानुमान लगाने में सहायता करता है कि कौन-से अनुभव संभवतः इष्टतम विकास को बढ़ावा देंगे। ✔**
(4) It determines the cultural relevance of the teaching methods. / यह शिक्षण विधियों की सांस्कृतिक प्रासंगिकता निर्धारित करता है।

Q.124 For inclusive education, which of the following is given priority in ECC?

समावेशी शिक्षा के लिए, ECC में निम्नलिखित में से किसे प्राथमिकता दी गई है?

(1) Uniform expectations / एकसमान अपेक्षाओं

(2) **Adaptable curricula / अनुकूलनीय पाठ्यचर्याओं ✔**

(3) Categorisation of learners / शिक्षार्थियों के वर्गीकरण

(4) Standardised assessments / मानकीकृत आकलनों

Q.125 According to the curriculum framework, which of the following activities is NOT recommended for pre-primary children?

पाठ्यचर्या की रूपरेखा के अनुसार, निम्नलिखित में से कौन-सी गतिविधि, पूर्व-प्राथमिक (pre-primary) बच्चों के लिए अनुशंसित नहीं है?

(1) **Memorising number sequences by rote / संख्या अनुक्रमों को रटकर याद करना ✔**

(2) Making simple comparisons and classifications / सरल तुलनाएँ एवं वर्गीकरण करना

(3) Identifying shapes and symmetries / आकृतियों एवं सममितियों की पहचान करना

(4) Learning through play / खेल के माध्यम से सीखना

Q.126 Identify the activity correlated with sensorial development.

संवेदी (sensorial) विकास से सहसंबंधित गतिविधि की पहचान कीजिए।

(1) Playing/Cycling / खेलना/साइकिल चलाना (Playing/Cycling)

(2) Singing songs / गीत गाना (Singing songs)

(3) Story narration / कहानी कथन (Story narration)

(4) **Activities with objects varying in smell / विभिन्न गंध वाली वस्तुओं के साथ गतिविधियाँ (Activities with objects varying in smell) ✔**

Q.127 Which of the following formulae is used to measure the IQ of a person?

निम्नलिखित में से किस सूत्र का उपयोग, किसी व्यक्ति का IQ मापने के लिए किया जाता है?

(1) **IQ= MA/CA × 100 ✔**

(2) IQ= MA/CA

(3) IQ= CA/MA

(4) IQ= CA/MA × 100

Q.128 In the ECCE curriculum, the 'context' component refers to _____.

ECCE पाठ्यचर्या में 'संदर्भ' अवयव, _____ संदर्भित करता है।

(1) **children's mother tongue or home language / बच्चों की मातृभाषा या घरेलू भाषा को ✔**

(2) only English, to promote standardisation / मानकीकरण को बढ़ावा देने के लिए, केवल अंग्रेजी को

(3) only visual formats, without text / टेक्स्ट के बिना, केवल दृश्य संरूप को

(4) foreign languages for global exposure / वैश्विक प्रदर्शन के लिए विदेशी भाषाओं को

Q.129 Which of the following helps organise classroom spaces to provoke a child's thinking, interests, and curiosity?

निम्नलिखित में से कौन-सा, बच्चे की सोच, रुचियों और जिज्ञासा को प्रेरित करने के लिए कक्षा के स्थानों को व्यवस्थित करने में सहायता करता है?

(1) Toy arrangement / खिलौनों की व्यवस्था

(2) **Learning Corners / लर्निंग कॉर्नर (अधिगम कोने) ✔**

(3) Seating arrangement / बैठने की व्यवस्था

(4) Circle time / सर्कल टाइम

QuickSarkari.com | WhatsApp Channel | Telegram: t.me/quick_sarkari

Q.130 If a group of persons seeking admission to a particular course or profession is to be tested for their ability to possess the skills required for that course, then individual differences in their _____ should also be tested.

यदि किसी विशेष पाठ्यक्रम या पेशे में प्रवेश पाने के इच्छुक व्यक्तियों के समूह का उस पाठ्यक्रम के लिए आवश्यक कौशल रखने की क्षमता का परीक्षण किया जाना है, तो उनकी _____ में वैयक्तिक भिन्नताओं का भी परीक्षण किया जाना चाहिए।

(1) Aptitude / अभिक्षमता (Aptitude) ✔

(2) Self-concept / आत्मधारणा (Self-concept)

(3) Value system / मूल्य व्यवस्था (Value system)

(4) Attitude / अभिवृत्ति (Attitude)

Q.131 Which of the following ways of interaction by teachers in the classroom are culturally-linguistically appropriate?

a. Individual
b. In pairs
c. Small groups
d. UDL-based whole class approach
e. Reading the textbook

शिक्षकों द्वारा कक्षा में अन्योन्यक्रिया के निम्नलिखित में से कौन-से तरीके सांस्कृतिक-भाषाई रूप से उपयुक्त हैं?

a. वैयक्तिक
b. युग्मों में
c. छोटे समूह
d. UDL-आधारित संपूर्ण कक्षा उपागम
e. पाठ्यपुस्तक पढ़ना

(1) a, b, c, and e / a, b, c, और e

(2) b, c, and d / b, c, और d

(3) a, b, e, and d / a, b, e, और d

(4) a, b, c, and d / a, b, c, और d ✔

Q.132 Anganwadi centres are a part of which scheme?

आंगनवाड़ी केंद्र किस योजना के भाग हैं?

(1) Integrated Child Development Services (ICDS) / एकीकृत बाल विकास सेवा (ICDS) ✔

(2) RMSA

(3) Mid-Day Meal / मध्याह्न भोजन

(4) Sarva Shiksha Abhiyan / सर्व शिक्षा अभियान

QuickSarkari.com | WhatsApp Channel | Telegram: t.me/quick_sarkari

Q.133 Match the following.
a. Attitude
i. Performing skilled work
b. Aptitude
ii. A particular feeling about something
c. Interest
iii. A particular ability/capacity for something
d. Psychomotor skill
iv. A motivating force to like something
निम्नलिखित का मिलान कीजिए।
a. अभिवृत्ति
i. कुशल कार्य करना
b. अभिक्षमता
ii. किसी चीज के बारे में विशेष भावना
c. अभिरुचि
iii. किसी चीज के बारे में विशेष योग्यता/क्षमता
d. मनःप्रेरक कौशल
iv. किसी चीज को पसंद करने के लिए प्रेरक शक्ति

(1) a-iv, b-iii, c-ii, d-i
(2) a-ii, b-iv, c-i, d-iii
(3) a-iii, b-ii, c-iv, d-i
(4) a-ii, b-iii, c-iv, d-i ✔

Q.134 Which of the following is NOT a goal set by NPAC-2016 (National Plan of Action for Children-2016)?
निम्नलिखित में से कौन-सा, NPAC-2016 (बच्चों के लिए राष्ट्रीय कार्य योजना-2016) द्वारा निर्धारित एक लक्ष्य नहीं है?

(1) Right to formal education in prestigious institutions / प्रतिष्ठित संस्थानों में औपचारिक शिक्षा का अधिकार ✔
(2) Right to health and nutrition / स्वास्थ्य और पोषण का अधिकार
(3) Right to survival / उत्तरजीविता का अधिकार
(4) Right to education and development / शिक्षा और विकास का अधिकार

Q.135 Two statements are given below. Select the option that correctly indicates which of these statements is true or false.
A) The pre-primary curriculum should focus only on preparing children for primary school, without paying attention to their current developmental needs.
B) The curriculum should be flexible and should allow for contextualisation to meet the needs of every child.
नीचे दो कथन दिए गए हैं। उस विकल्प का चयन कीजिए जो सही ढंग से यह बताता है कि इनमें से कौन-सा कथन सत्य है अथवा असत्य।
A) पूर्व-प्राथमिक पाठ्यचर्या को बच्चों की सामयिक विकासात्मक आवश्यकताओं पर ध्यान दिए बिना केवल प्राथमिक विद्यालय के लिए उन्हें तैयार करने पर केंद्रित होना चाहिए।
B) पाठ्यचर्या लचीली होनी चाहिए और प्रत्येक बच्चे की आवश्यकताओं को पूरा करने के लिए संदर्भ-निर्धारण (contextualisation) की सुविधा होनी चाहिए।

(1) Both statements A and B are true / कथन A और B दोनों सत्य हैं
(2) Statement B is false and statement A is true / कथन B असत्य है और कथन A सत्य है
(3) Statement A is false and statement B is true / कथन A असत्य है और कथन B सत्य है ✔
(4) Both statements A and B are false / कथन A और B दोनों असत्य हैं

Q.136 Two statements are given below. Select the option that is correct with reference to the following statements.
1. The ECCE curriculum is a balanced play and activity-based programme that provides a stimulating environment for the linguistic, intellectual, social, emotional and physical development of the child.
2. The ECCE curriculum is a programme that demands unquestioning obedience and adherence to strict classroom discipline.

नीचे दो कथन दिए गए हैं। उस विकल्प का चयन कीजिए जो निम्नलिखित कथनों के संदर्भ में सही है।
1. ECCE पाठ्यचर्या, संतुलित खेल एवं गतिविधि-आधारित कार्यक्रम है जो बच्चे के भाषाई, बौद्धिक, सामाजिक, संवेगात्मक और शारीरिक विकास हेतु एक उद्दीपक परिवेश प्रदान करती है।
2. ECCE पाठ्यचर्या एक ऐसा कार्यक्रम है, जो बिना किसी प्रश्न के आज्ञाकारिता और सख्त कक्षा अनुशासन के पालन की मांग करता है।

(1) Only 1 is correct / केवल 1 सही है ✔
(2) Only 2 is correct / केवल 2 सही है
(3) Neither 1 nor 2 is correct / न तो 1 और न ही 2 सही है
(4) Both 1 and 2 are correct / 1 और 2 दोनों सही हैं

Q.137 What is the specific role of the teacher in the traditional approach to curriculum planning?
पाठ्यचर्या नियोजन के पारंपरिक उपागम में शिक्षक की विशिष्ट भूमिका क्या है?

(1) A facilitator who guides students in self-directed learning. / वह सुगमकर्ता जो विद्यार्थियों को स्व-निर्देशित अधिगम में मार्गदर्शन प्रदान करता है।
(2) An authority who delivers predetermined content to students. / वह प्राधिकारी जो विद्यार्थियों को पूर्व-निर्धारित विषय-वस्तु प्रदान करता है। ✔
(3) A guide who encourages creative exploration. / वह मार्गदर्शक जो सृजनात्मक अन्वेषण को प्रोत्साहित करता है।
(4) A designer who develops the curriculum collaboratively with students. / वह डिजाइनर जो विद्यार्थियों के साथ सहयोगात्मक रूप से पाठ्यचर्या विकसित करता है।

Q.138 In the Indian context, according to the National Policy on Education (1986), early childhood specifically refers to the age group of _____.
भारतीय प्रसंग में, राष्ट्रीय शिक्षा नीति (1986) के अनुसार, प्रारंभिक बाल्यावस्था विशेष रूप से _____ की आयु वर्ग को संदर्भित करता है।

(1) 0–6 years / 0–6 वर्ष ✔
(2) 14–18 years / 14–18 वर्ष
(3) 6–14 years / 6–14 वर्ष
(4) 1-3 years / 1-3 वर्ष

Q.139 Which of the following schemes/acts permits the employment of adolescents except in hazardous occupations?
[A] Child Labour Amendment Act – 2016 [B] National Plan of Action for Children -2016 [C] Juvenile Justice Act – 2015 [D] Integrated Child Protection Scheme – 2009
निम्नलिखित में से कौन-सी योजना/अधिनियम खतरनाक व्यवसायों को छोड़कर किशोरों को रोजगार की अनुमति देता है?
[A] बाल श्रम संशोधन अधिनियम – 2016 [B] बच्चों के लिए राष्ट्रीय कार्य योजना -2016 [C] किशोर न्याय अधिनियम – 2015 [D] एकीकृत बाल संरक्षण योजना – 2009

(1) A ✔
(2) B
(3) C
(4) D

Q.140 In the ECCE context, what is the full form of 'AWW'?

ECCE संदर्भ में, 'AWW' का पूर्ण रूप क्या है?

(1) A word with the worker / A word with the worker (ए वर्ड विथ द वर्कर)

(2) Anganwadi workers / Anganwadi workers (आंगनवाड़ी वर्कर्स) ✔

(3) Anganwadi welfare / Anganwadi welfare (आंगनवाड़ी वेलफेयर)

(4) Anganwadi workshop / Anganwadi workshop (आंगनवाड़ी वर्कशॉप)

Q.141 What type of observation involves recording children's behaviour or activities at regular intervals?

किस प्रकार के अवलोकन में नियमित अंतरालों पर बच्चों के व्यवहार या गतिविधियों को अभिलिखित किया जाता है?

(1) Time sampling / समय प्रतिचयन (Time sampling) ✔

(2) Event sampling / घटना प्रतिचयन (Event sampling)

(3) Naturalistic sampling / प्राकृतिक प्रतिचयन (Naturalistic sampling)

(4) Participant observation / सहभागी अवलोकन (Participant observation)

Q.142 According to the IMCI protocol, which organisations are providing health services to children under 5 years of age in sub-district and district level hospitals?

IMCI प्रोटोकॉल के अनुसार, कौन-से संगठन उपजिला और जिला स्तर के अस्पतालों में 5 वर्ष से कम आयु के बच्चों को स्वास्थ्य सेवा प्रदान कर रहे हैं?

(1) DGHS and DGHA / DGHS और DGHA

(2) DGFP and DGHA / DGFP और DGHA

(3) DGHS and DGAH / DGHS और DGAH

(4) DGHS and DGFP / DGHS और DGFP ✔

Q.143 According to most nutrition guidelines, what percentage of daily calorie intake is recommended to be obtained from protein?

अधिकांश पोषण दिशानिर्देशों के अनुसार, दैनिक कैलोरी सेवन का कितना प्रतिशत प्रोटीन से प्राप्त करने की अनुशंसा की जाती है?

(1) 20-25%

(2) 30-35%

(3) 10-35% ✔

(4) 40-45%

Q.144 Match the following components of IMCI with their respective strategies:
Column A: Benefits Column B: Strategies
1. Prevents malnutrition a. Exclusive breastfeeding
2. Reduces infectious diseases b. Adequate nutrition
3. Supports healthy growth c. Regular immunisation
4. Reduces the risk of dehydration d. Regular health check-ups
5. Indicates overall child health e. Access to clean water
IMCI के निम्नलिखित अवयवों का उनकी संबंधित रणनीतियों से मिलान करें:
स्तंभ अ: लाभ स्तंभ ब: रणनीतियाँ
1. कुपोषण से बचाव a. केवल स्तनपान
2. संक्रामक रोगों को कम करता है b. पर्याप्त पोषण
3. स्वस्थ वृद्धि को समर्थन देता है c. नियमित टीकाकरण
4. निर्जलीकरण के जोखिम को कम करता है d. नियमित स्वास्थ्य जांच
5. समग्र बाल स्वास्थ्य को इंगित करता है e. स्वच्छ जल तक पहुंच

(1) 1-a, 2-c, 3-b, 4-e, 5-d ✔
(2) 1-a. 2-b, 3-c, 4-d, 5-e
(3) 1-b, 2-a, 3-e, 4-c, 5-d
(4) 1-e, 2-d, 3-c, 4-b, 5-a

Q.145 What is the main objective of optimal nutrition?
इष्टतम पोषण (optimal nutrition) का मुख्य उद्देश्य क्या है?

(1) Increase in muscles / मांसपेशियों में वृद्धि
(2) Weight loss / वजन घटना
(3) Increase in energy expenditure / ऊर्जा व्यय में वृद्धि
(4) Overall health and well-being / समग्र स्वास्थ्य एवं कल्याण ✔

Q.146 Which of the following is the main benefit of field observation visits?
क्षेत्र अवलोकन दौरों (field observation visits) का मुख्य लाभ निम्नलिखित में से कौन-सा है?

(1) Increasing the burden of homework / होमवर्क के बोझ को बढ़ाना
(2) Reducing the hours of classroom teaching / कक्षा में शिक्षण के घंटे को कम करना
(3) Limiting student interaction / विद्यार्थी के परस्पर क्रिया को सीमित करना
(4) Providing real-life experiences / वास्तविक जीवन के अनुभव प्रदान करना ✔

Q.147 To ensure a balanced diet for infants, complementary foods should include _____.
शिशुओं के लिए संतुलित आहार सुनिश्चित करने के लिए, पूरक खाद्य पदार्थों में _____ शामिल होने चाहिए।

(1) fast food and sugary drinks / फास्ट फूड और शक्करयुक्त पेय पदार्थ
(2) foods rich in carbohydrates / कार्बोहाइड्रेट से भरपूर खाद्य पदार्थ
(3) whole grains, sugary snacks and fried foods / साबुत अनाज, शक्करयुक्त स्नैक्स और तले हुए खाद्य पदार्थ
(4) fruits, vegetables, grains and proteins / फल, सब्ज़ियाँ, अनाज और प्रोटीन ✔

Q.148 Which of the following is NOT a disadvantage of a field observation visit?

निम्नलिखित में से कौन-सा, क्षेत्र अवलोकन दौरा का नुकसान नहीं है?

(1) With a large group, observation and learning become difficult / बड़े समूह के साथ, अवलोकन और अधिगम कठिन हो जाता है

(2) It does not involve any cost / कोई लागत नहीं लगती है ✔

(3) It requires a lot of planning and effort / बहुत अधिक नियोजन और प्रयास की आवश्यकता होती है

(4) It takes time / समय लगता है

Q.149 Match the Acts given in Column I with the definitions given in Column II.

Column I: Act

A. Juvenile Justice Act-2015

B. POCSO Act-2012

C. RTE Act-2009

D. PCM Act-2006

Column II: Definition

P. The Constitution of India provides free and compulsory education to all children aged 6 to 14 years.

Q. Prohibiting child marriage, protecting and providing relief to the victim child, and punishing those who promote such marriages.

R. A legal framework for the protection of the rights of all children in conflict with law and for the rehabilitation of these children.

S. A legal framework for the protection of children from sexual abuse and pornography.

कॉलम I में दिए गए अधिनियमों को कॉलम II में दी गई परिभाषाओं से सुमेलित कीजिए।

कॉलम I: अधिनियम

A. किशोर न्याय अधिनियम-2015

B. POCSO अधिनियम-2012

C. RTE अधिनियम-2009

D. PCM अधिनियम-2006 कॉलम II: परिभाषा

P. भारत का संविधान 6 से 14 वर्ष की आयु के सभी बच्चों को निःशुल्क और अनिवार्य शिक्षा प्रदान करता है।

Q. बाल विवाह पर प्रतिबंध लगाना, पीड़ित बच्चे को संरक्षण देना तथा राहत प्रदान करना तथा ऐसे विवाहों को बढ़ावा देने वालों को दंडित करना।

R. विधि का उल्लंघन करने वाले सभी बच्चों के अधिकारों के संरक्षण तथा इन बच्चों के पुनर्वास के लिए विधिक ढांचा।

S. यौन उत्पीड़न और अश्लील चित्रण (pornography) से बच्चों की संरक्षण के लिए विधिक ढांचा।

(1) A- Q; B- S; C- P; D- R

(2) A- R; B- S; C- P; D- Q ✔

(3) A- S; B- R; C- P; D- Q

(4) A- S; B- R; C- Q; D- P

Q.150 Fungal infections can affect which of the following body parts?

फंगल संक्रमण निम्नलिखित में से किन शारीरिक अंगों को प्रभावित कर सकते हैं?

(1) Eyes and ears / आँखें और कान

(2) Lungs and liver / फेफड़े और यकृत

(3) Heart and brain / हृदय और मस्तिष्क

(4) Nails, groins, skin, and hair / नाखून, कमर (ग्रोइन), त्वचा और बाल ✔

Q.151 State whether the following statements are true or false.
Statement 1: Breastfeeding benefits only the infants and has no significant health benefits for the mother.
Statement 2: Breastfeeding is convenient, as the milk is always available at the right temperature for the infant.

बताएं कि निम्नलिखित कथन सत्य हैं अथवा असत्य।
कथन 1: स्तनपान से केवल शिशुओं को लाभ होता है तथा माँ के लिए इसका कोई महत्वपूर्ण स्वास्थ्य लाभ नहीं है।
कथन 2: स्तनपान सुविधाजनक है, क्योंकि शिशु के लिए दूध सदैव सही ताप पर उपलब्ध रहता है।

(1) Both statements are false. / दोनों कथन असत्य हैं।
(2) Statement 1 is false and statement 2 is true. / कथन 1 असत्य है और कथन 2 सत्य है। ✔
(3) Statement 1 is true and statement 2 is false. / कथन 1 सत्य है और कथन 2 असत्य है।
(4) Both statements are true. / दोनों कथन सत्य हैं।

Q.152 Which of the following learning corners helps children develop pre-literacy skills by engaging with books and identifying their parts?

निम्नलिखित में से कौन-सा लर्निंग कार्नर (learning corner) बच्चों को पुस्तकों के साथ जुड़ाव और उनके भागों की पहचान करके पूर्व-साक्षरता कौशल विकसित करने में सहायता करता है?

(1) Writing corner / राइटिंग कार्नर (Writing corner)
(2) Dramatic play corner / ड्रामैटिक प्ले कार्नर (Dramatic play corner)
(3) Creative art corner / क्रिएटिव आर्ट कार्नर (Creative art corner)
(4) Reading and story books corner / रीडिंग और स्टोरी बुक्स कार्नर (Reading and story books corner) ✔

Q.153 Identify the policy launched by the Government of India which is committed to universal access to quality early childhood education for all children below 6 years of age.

भारत सरकार द्वारा शुरू की गई उस नीति की पहचान करें, जो 6 वर्ष से कम आयु के सभी बच्चों के लिए गुणवत्तापूर्ण प्रारंभिक बाल्यावस्था शिक्षा तक सार्वभौमिक पहुंच के लिए प्रतिबद्ध है।

(1) National Early Childhood Care and Education Policy, 2013 / राष्ट्रीय प्रारंभिक बाल्यावस्था देखभाल एवं शिक्षा नीति, 2013 (National Early Childhood Care and Education Policy, 2013) ✔
(2) National Plan of Action for Children, 2016 / बच्चों के लिए राष्ट्रीय कार्य योजना, 2016 (National Plan of Action for Children, 2016)
(3) National Nutrition Mission / राष्ट्रीय पोषण मिशन (National Nutrition Mission)
(4) National Health Policy / राष्ट्रीय स्वास्थ्य नीति (National Health Policy)

Q.154 According to the Child Labour Amendment Act, 2016, an adolescent is defined as a person between the ages of _____.

बाल श्रम संशोधन अधिनियम, 2016 के अनुसार, किशोर की परिभाषा _____की आयु के बीच के व्यक्ति के रूप में की गई है।

(1) 10 to 18 years / 10 से 18 वर्ष
(2) 12 to 21 years / 12 से 21 वर्ष
(3) 14 to 18 years / 14 से 18 वर्ष ✔
(4) 10 to 21 years / 10 से 21 वर्ष

Q.155 Select the incorrect statement.

A. The aim and objective of a high-quality preschool is not to provide formal education to children.

B. All parents who send their children to ECCE centres or preschools hold similar views regarding the purpose and implications of ECCE.

C. Parents from low-income families think that ECCE is not necessary for children below 6 years of age.

D. The National Early Childhood Care and Education Policy recognises that children are best cared for in their family environment, therefore it is necessary to strengthen the capacities of the family to care for children.

गलत कथन का चयन कीजिए।

A. उच्च-गुणवत्ता वाले प्रीस्कूल का उद्देश्य और लक्ष्य बच्चों को औपचारिक शिक्षा प्रदान करना नहीं है।

B. सभी माता-पिता, जो अपने बच्चों को ECCE केंद्रों या प्रीस्कूलों में भेजते हैं, ECCE के उद्देश्य और निहितार्थ के संबंध में समान विचार रखते हैं।

C. निम्न-आय वाले परिवारों के माता-पिता सोचते हैं कि 6 वर्ष से कम आयु के बच्चों के लिए ECCE आवश्यक नहीं है।

D. राष्ट्रीय प्रारंभिक बाल्यावस्था देखभाल एवं शिक्षा नीति यह मानती है कि बच्चों की देखभाल उनके पारिवारिक परिवेश में सबसे अच्छी तरह से होती है, इसलिए बच्चों की देखभाल के लिए परिवार की क्षमताओं को सुदढ़ करना आवश्यक है।

(1) B ✔

(2) D

(3) C

(4) A

Q.156 A child aged 2 to 5 years has diarrhoea and some dehydration. What is recommended to be done for him?

2 से 5 वर्ष की आयु के बच्चे को अतिसार और कुछ निर्जलीकरण की समस्या है। उसके लिए क्या किया जाना अनुशंसित है?

(1) Start giving IV fluids / IV तरल पदार्थ देना शुरू करना

(2) Give anti-diarrhoeal medicine / अतिसार रोधी दवा देना

(3) Give Oral Rehydration Solution and zinc supplements / ओरल रिहाइड्रेशन सॉल्यूशन और जिंक संपूरक देना ✔

(4) Give antibiotics / एंटीबायोटिक्स देना

Q.157 _____ are macronutrients.

_____ बृहत् पोषक तत्व हैं।

(1) Carbohydrates, fats, proteins and oils / कार्बोहाइड्रेट, वसा, प्रोटीन और तेल ✔

(2) Fibre and water / फाइबर और जल

(3) Sugars and salts / शर्करा और लवण

(4) Vitamins and minerals / विटामिन और खनिज

Q.158 HDI (Human Development Index), which measures the progress of a nation, has important determinants characterising it. Identify the determinant that does NOT contribute to measuring HDI.

HDI (मानव विकास सूचकांक), जो किसी राष्ट्र की प्रगति को मापता है, में महत्वपूर्ण निर्धारक विशेषताएँ (determinants characterising) होती हैं। उस निर्धारक की पहचान कीजिए , जो HDI को मापने में योगदान नहीं देता है।

(1) Geographical factor / भौगोलिक कारक ✔

(2) Literacy factor / साक्षरता कारक

(3) Longevity / दीर्घायु

(4) Infant mortality rate / शिशु मृत्यु दर

Q.159 What is the implied recommendation for parents regarding children's sound-emitting toys?
बच्चों के, ध्वनि उत्सर्जित करने वाले खिलौनों के संबंध में माता-पिता के लिए निहित अनुशंसा क्या है?

(1) Increase the volume for better engagement. / बेहतर संलग्नता के लिए वॉल्यूम बढ़ाना।
(2) Monitor and control the sound level of toys. / खिलौनों के ध्वनि स्तर की निगरानी एवं नियंत्रण करना। ✔
(3) Buy only soundless toys. / केवल ध्वनि रहित खिलौने खरीदना।
(4) Ensure that the sound is always above 90 decibels. / सुनिश्चित करना कि ध्वनि सदैव 90 डेसिबल से अधिक हो।

Q.160 In early childhood, continuous assessment should mainly be done through which of the following?
प्रारंभिक बाल्यावस्था में, सतत मूल्यांकन मुख्यतः निम्नलिखित में से किन माध्यमों से किया जाना चाहिए?

(1) Observation of the child's behaviour during activities / क्रियाकलाप के दौरान बच्चे के व्यवहार के अवलोकन ✔
(2) Final examinations / अंतिम परीक्षाओं
(3) Annual progress reports / वार्षिक प्रगति रिपोर्ट
(4) Oral interviews with parents / अभिभावक के साथ मौखिक साक्षात्कार

Q.161 Which of the following should be reflected in a balanced manner in the daily plan?
A. Active and quiet activities
B. Activities initiated by children and by teachers
C. Indoor and outdoor activities
D. Large group activities
दैनिक योजना में, निम्नलिखित में से किसका संतुलन प्रतिबिंबित होना चाहिए?
A. सक्रिय और शांत क्रियाकलाप
B. बच्चों द्वारा और शिक्षकों द्वारा शुरू किए गए क्रियाकलाप
C. इनडोर और आउटडोर क्रियाकलाप
D. बृहद समूह के क्रियाकलाप

(1) Only A, B and C / केवल A, B और C ✔
(2) Only C / केवल C
(3) All of A, B, C and D / A, B, C और D, सभी
(4) Only B and C / केवल B और C

Q.162 Organising a pre-school programme begins with understanding _____.
प्री-स्कूल कार्यक्रम आयोजन _____ को समझने से शुरू होता है।

(1) the income levels of parents / माता-पिता की आय के स्तर
(2) government policies / सरकारी नीतियों
(3) the developmental needs of children / बच्चों की विकासात्मक आवश्यकताओं ✔
(4) the teacher's priorities / शिक्षक की प्राथमिकताओं

Q.163 The weight of the brain also increases rapidly during infancy: by the end of the second year, the brain reaches _____% of its adult weight.
शैशव काल के दौरान मस्तिष्क का वजन भी तेजी से बढ़ता है: दूसरे वर्ष के अंत तक, मस्तिष्क अपने वयस्क वजन के _____% तक पहुंच जाता है।

(1) 70
(2) 72
(3) 80
(4) 75 ✔

Quick Sarkari

Q.164 Children are _____. They see everything from their own point of view.

बच्चे _____ होते हैं। वे प्रत्येक चीज़ को अपने दृष्टिकोण से देखते हैं।

(1) self-centred / आत्मकेंद्रित (self-centred) ✔

(2) selfish / स्वार्थी (selfish)

(3) energetic / ऊर्जावान (energetic)

(4) imitators / अनुकरणकर्ता (imitators)

Q.165 Who is considered responsible for creating the supportive emotional environment necessary for the optimal development of children?

बच्चों के ईष्टतम विकास हेतु आवश्यक सहायक भावात्मक परिवेश के सृजन का उत्तरदायित्व किसका माना जाता है?

(1) Play equipment and library books for children to play and learn / बच्चों को खेलने और अधिगम के लिए खेल उपकरण और पुस्तकालय की पुस्तकें

(2) Qualified teachers / योग्य शिक्षक

(3) Supportive parents and community / सहयोगी माता-पिता और समुदाय ✔

(4) Literate parents and prosperous community / साक्षर माता-पिता और समृद्ध समुदाय

Q.166 Free play is mainly focused on _____.

स्वच्छंद क्रीड़ा (Free play) मुख्यतः _____ पर केंद्रित है।

(1) playing against each other / एक-दूसरे के विरुद्ध खेलने

(2) winning / जीतने

(3) enjoyment / आनंद ✔

(4) physical development / शारीरिक विकास

Q.167 Identify the meaning of 'development of creative and aesthetic appreciation'.

'सृजनात्मक एवं सौंदर्यात्मक सराहना के विकास (development of creative and aesthetic appreciation)' के अर्थ की पहचान करें।

(1) Involving parents in school activities by working in partnership with them / अभिभावकों के साथ साझेदारी में कार्य करके उन्हें विद्यालय गतिविधियों में शामिल करना

(2) Participation in various art forms, and expression and appreciation towards dance, drama and music / विभिन्न कला रूपों में सहभागिता, नृत्य, नाटक और संगीत के प्रति अभिव्यक्ति और सराहना ✔

(3) Skill to participate in sports and games / स्पोर्ट्स और गेम्स में भाग लेने का कौशल

(4) Development of the skill of understanding and appreciating life / जीवन को समझना और उसकी सराहना करने के कौशल का विकास

Q.168 What is the primary purpose of using play materials in early childhood education?

प्रारंभिक बाल्यावस्था शिक्षा में खेल सामग्री के उपयोग का प्राथमिक उद्देश्य क्या है?

(1) To provide varied experiences through recreational activities / मनोरंजक गतिविधियों के माध्यम से विविध अनुभव प्रदान करना ✔

(2) To prepare children for competitive examinations / बच्चों को प्रतियोगी परीक्षाओं के लिए तैयार करना

(3) To reduce the need for teachers / शिक्षकों की आवश्यकता को कम करना

(4) To keep children quiet / बच्चों को शांत रखना

Q.169 Which of the following can be considered as income of an ECCE centre?
निम्नलिखित में से किसे, ECCE केंद्र की आय माना जा सकता है?

(1) Amount spent on educational resources / शैक्षिक संसाधनों पर खर्च की गई राशि
(2) Furniture donated by a neighbouring school / पड़ोसी स्कूल द्वारा दान किया गया फर्नीचर
(3) **Grant-in-aid received from the government / सरकार द्वारा प्राप्त सहायता अनुदान ✔**
(4) Money spent on the administration and management of the ECCE centre / ECCE केंद्र के प्रशासन और प्रबंधन पर खर्च की गई मुद्रा

Q.170 When should teachers develop measures to improve their pedagogical approach?
शिक्षकों को शिक्षणशास्त्रीय दृष्टिकोण में सुधार के लिए उपाय कब तैयार करने चाहिए?

(1) **Regularly / नियमित रूप से (Regularly) ✔**
(2) Rarely / बहुत कम बार (Rarely)
(3) Never / कभी नहीं (Never)
(4) Occasionally / यदा-कदा (Occasionally)

Q.171 Which of the following statements is/are true/false?
Statement 1: Nutrition is important for the building and repair of body tissues such as muscles and organs.
Statement 2: Poor nutrition can lead to weakened immunity and increased susceptibility to infections.
निम्नलिखित में से कौन-सा/से कथन सत्य/असत्य है/हैं?
कथन 1: पोषण, मांसपेशियों और अंगों जैसे शारीरिक ऊतकों के निर्माण और मरम्मत के लिए महत्वपूर्ण है।
कथन 2: खराब पोषण से प्रतिरक्षा कमजोर हो सकती है और संक्रमणों के प्रति सुग्राह्यता बढ़ सकती है।

(1) Statement 1 is true, and statement 2 is false / कथन 1 सत्य है, और कथन 2 असत्य है
(2) **Both the statements are true / दोनों कथन सत्य हैं ✔**
(3) Statement 1 is false, and statement 2 is true / कथन 1 असत्य है, और कथन 2 सत्य है
(4) Both the statements are false / दोनों कथन असत्य हैं

Q.172 "Budgets help in forecasting expenditure and estimating receipts, such as where the money for targeted expenditure will come from." Keeping this statement in mind, which of the following statements is NOT true regarding the budget for a particular year?
"बजट, व्यय का पूर्वानुमान लगाने और संप्राप्ति को प्राक्कलित करने में सहायता करते हैं, जैसे कि लक्षित व्यय के लिए धन कहाँ से आएगा।" इस कथन को ध्यान में रखते हुए, किसी विशेष वर्ष के लिए बजट के संबंध में निम्नलिखित में से कौन-सा कथन सत्य नहीं है?

(1) It helps in allocating expenditure for each activity. / यह प्रत्येक गतिविधि के लिए व्यय आवंटित करने में सहायता करता है।
(2) It helps in planning for emergencies. / यह आपातस्थितियों के लिए योजना बनाने में सहायता करता है।
(3) **It provides data on the expenditures of the last five years. / यह पिछले पाँच वर्षों के व्ययों के आंकड़े प्रदान करता है। ✔**
(4) It helps in planning the number of activities for the year. / यह वर्ष के लिए गतिविधियों की संख्या की योजना बनाने में सहायता करता है।

Q.173 Radio was used as a teaching-learning material for a long time. In India, the first radio stations were set up in the year _____ in the cities of _____ and _____.
रेडियो का उपयोग लंबे समय तक शिक्षण-अधिगम सामग्री के रूप में किया जाता था। भारत में, पहला रेडियो स्टेशन वर्ष _____ में _____ और _____ शहरों में स्थापित किया गया था।

(1) **1927; Calcutta; Bombay / 1927; कलकत्ता; बॉम्बे ✔**
(2) 1938; Delhi; Madras / 1938; दिल्ली; मद्रास
(3) 1921; Madras; Calcutta / 1921; मद्रास; कलकत्ता
(4) 1936; Delhi; Bombay / 1936; दिल्ली; बॉम्बे

Q.174 How can adults help in boosting the self-confidence of growing children?

बड़े होते हुए बच्चों के आत्मविश्वास को बढ़ाने में वयस्कों द्वारा सहायता कैसे की जा सकती है?

(1) By accepting the child's strengths and weaknesses and helping him/her become better. / बच्चे के सामर्थ्य और कमज़ोरियों को स्वीकार करके तथा उसे बेहतर बनने में सहायता करके। ✔

(2) By motivating the child to secure the first position in the class. / बच्चे को कक्षा में प्रथम स्थान प्राप्त करने के लिए प्रेरित करके।

(3) By comparing the child with others and pointing out his/her weaknesses. / बच्चे की तुलना दूसरों से करके और उनकी कमज़ोरियों पर ध्यान दिलाकर।

(4) By punishing the child and helping him/her set high goals. / बच्चे को सजा देकर और ऊंचे लक्ष्य निर्धारित करने में सहायता करके।

Q.175 What is the process of providing temporary support, structure and guidance during instruction called?

अनुदेशन (instruction) के दौरान अस्थायी सहायता, संरचना और मार्गदर्शन प्रदान करने की प्रक्रिया को क्या कहते हैं?

(1) Graduated Release of Responsibility / उत्तरदायित्व का क्रमिक निर्मोचन (Graduated Release of Responsibility)

(2) Scaffolding / ढांचा (Scaffolding) ✔

(3) Prompting / अनुबोधन (Prompting)

(4) Differentiated Instruction / विभेदी अनुदेशन (Differentiated Instruction)

Q.176 In traditional Indian society, who mainly provides early childhood care and values?

पारंपरिक भारतीय समाज में, प्रारंभिक बाल्यावस्था देखभाल और मूल्य मुख्यतः कौन प्रदान करता है?

(1) Joint family / संयुक्त परिवार ✔

(2) Private schools / निजी विद्यालय

(3) Day care centres / दिवस देखभाल केंद्र

(4) Government institutions / सरकारी संस्थान

Q.177 Match the terms in Column A with the corresponding descriptions in Column B:

Column A: Terms Early childhood educator or professional Teacher Caregiver Staff

Column B: Descriptions

A) Refers to adults who educate and care for young children in structured settings

B) Includes staff working in an early childhood education programme outside the classroom

C) Refers to adults who provide direct care and supervision to young children

D) Used for persons who give instruction and guidance to young children in an educational setting

स्तंभ A के शब्दों को स्तंभ B के संगत विवरणों से सुमेलित करें:

स्तंभ A: शब्दप्रारंभिक बाल्यावस्था शिक्षक या पेशेवरशिक्षकदेखभालकर्ताकर्मचारी

स्तंभ B: विवरण

A) उन वयस्कों को संदर्भित करता है जो संरचित परिवेश में छोटे बच्चों को शिक्षित और देखभाल करते हैं

B) इसमें कक्षा के बाहर प्रारंभिक बाल्यावस्था शिक्षा कार्यक्रम में कार्यरत कर्मचारी शामिल हैं

C) उन वयस्कों को संदर्भित करता है जो छोटे बच्चों की प्रत्यक्ष देखभाल और देखरेख करते हैं

D) शैक्षिक परिवेश में छोटे बच्चों को निर्देश और मार्गदर्शन देने वाले व्यक्तियों के लिए उपयोग किया जाता है

(1) 1-A, 2-D, 3-C, 4-B ✔

(2) 1-B, 2-A, 3-D, 4-C

(3) 1-C, 2-A, 3-D 4-B

(4) 1-D, 2-C, 3-B, 4-A

Q.178 Co-construction is closely related to what?

सह-रचना (co-construction) किससे निकटता से संबन्धित है?

(1) How children grow / बच्चे कैसे बढ़ते हैं

(2) How children play / बच्चे कैसे खेलते हैं

(3) How children cooperate / बच्चे कैसे सहयोग करते हैं

(4) How children learn / बच्चे कैसे सीखते हैं ✔

Q.179 What is the minimum time that parents should set aside daily to play with their 3 to 6-year-old children to ensure co-constructive learning?

सह-रचनात्मक (co-constructive) अधिगम सुनिश्चित करने के लिए माता-पिता को अपने 3 से 6 वर्ष के बच्चों के साथ प्रतिदिन खेलने के लिए न्यूनतम कितना समय निर्धारित करना चाहिए?

(1) 1-2 hours / 1-2 घंटे

(2) Only on weekends / केवल सप्ताहांत पर

(3) 10-15 minutes / 10-15 मिनट

(4) 30 minutes to 1 hour / 30 मिनट से 1 घंटे तक ✔

Q.180 Match the meaning and concept of the following relaxation techniques propounded by famous personalities.

A. Transcendental Meditation

B. Sudarshan Kriya

C. Vipassana

i. Technique of self-transformation through self-observation

ii. Repetition of a mantra to take our mind from the level of life to the depths of our existence

iii. Unique and powerful breathing technique

प्रसिद्ध व्यक्तित्वों द्वारा कथित निम्नलिखित विश्रांति तकनीकों के अर्थ और अवधारणा को सुमेलित कीजिए।

A. अनुभवातीत-चिंतन (Transcendental Meditation)

B. सुदर्शन क्रिया (Sudarshan Kriya)

C. विपश्यना (Vipassana)

i. आत्म-अवलोकन के माध्यम से आत्म-परिवर्तन की तकनीक

ii. हमारे मन को जीवन की स्तर से हमारे अस्तित्व की गहराई त लिए मंत्र की पुनरावृत्ति

iii. अद्वितीय और शक्तिशाली श्वसन तकनीक

(1) A - iii, B - ii, C - i

(2) A - iii, B - i, C - ii

(3) A - ii, B - iii, C - i ✔

(4) A - i, B - ii, C - iii

Q.181 _____ is the main cause for learning disability.

_____ अधिगम अक्षमता का मुख्य कारण है।

(1) Biological factors / जैविक कारक

(2) Psychological factors / मनोवैज्ञानिक कारक

(3) Behavioural factors / व्यवहारात्मक कारक

(4) Neurological dysfunction / तंत्रिका संबंधी दुष्क्रिया ✔

Q.182 Infants are given rattles and other such toys so that _____.

शिशुओं को झुनझुने और ऐसे अन्य खिलौने दिए जाते हैं ताकि _____।

(1) they develop gross motor skills / उनमें समग्र पेशीय कौशल विकसित हो

(2) they develop fine motor skills / उनमें सूक्ष्म पेशीय कौशल विकसित हो ✔

(3) they develop sensitivity towards colours / उनमें रंगों के प्रति संवेदनशीलता विकसित हो

(4) they play with them / वे उनसे खेलें

Q.183 The ability of the brain to change in response to experiences _____.

अनुभवों के प्रति प्रतिक्रिया में मस्तिष्क की परिवर्तन करने की क्षमता _____।

(1) decreases with age / आयु के साथ घटती है ✔

(2) remains the same throughout life / जीवन भर समान रहती है

(3) increases with age / आयु के साथ बढ़ती है

(4) is not related to age / आयु से संबंधित नहीं होती

Q.184 Children master the use of their arms before their hands and they learn to control their fingers. This pattern is observed during development in children. This feature is referred to as:

बच्चे अपने हाथों से पहले अपनी भुजाओं का उपयोग करने में निपुण होते हैं और वे अपनी उंगलियों को नियंत्रित करना सीखते हैं। बच्चों में विकास के दौरान यह पैटर्न देखा जाता है। इस विशेषता को कहा जाता है:

(1) Development as a product of growth and maturation / वृद्धि और परिपक्वता के उत्पाद के रूप में विकास

(2) Cephalo-caudal sequence of development / विकास का शिरःपुच्छीय (सेफेलो-कॉडल) अनुक्रम

(3) Near to far sequence of development / विकास का निकट से दूर का अनुक्रम ✔

(4) Continuous development / सतत विकास

Q.185 The ability to understand that even when outer appearances change the physical properties remain the same is called _____.

यह समझने की क्षमता कि बाहरी रूप बदलने पर भी भौतिक गुण समान रहते हैं, _____ कहलाती है।

(1) egocentrism / आत्मकेंद्रितता

(2) animistic thinking / जीववादी चिंतन

(3) conservation / संरक्षण ✔

(4) reversibility / उत्क्रमणीयता

Q.186 According to NCF 2005, discriminatory behaviour in classrooms should be _____.

NCF 2005 के अनुसार, कक्षाओं में भेदभावपूर्ण व्यवहार _____ होना चाहिए।

(1) controlled only by school principals / केवल स्कूल के प्रधानाचार्यों द्वारा नियंत्रित

(2) deliberately avoided or minimised / जानबूझकर टाला या कम किया गया ✔

(3) encouraged to increase competition / प्रतिस्पर्धा बढ़ाने के लिए प्रोत्साहित किया गया

(4) ignored as insignificant / महत्वहीन मानकर अनदेखा किया गया

Q.187 Almost all the brain cells of a newborn baby are similar to the brain cells of an adult, yet why does the baby not behave like an adult?

किसी नवजात शिशु की लगभग सभी मस्तिष्क कोशिकाएं, किसी वयस्क की मस्तिष्क कोशिकाओं के समान होती हैं, फिर भी शिशु, वयस्क की भांति व्यवहार क्यों नहीं करता है?

(1) The supply of nutrients and oxygen is low. / पोषक तत्वों और ऑक्सीजन की आपूर्ति कम होती है।

(2) There are fewer connections between brain cells. / मस्तिष्क कोशिकाओं के बीच संयोजन कम होते हैं। ✔

(3) The size of the brain is small. / मस्तिष्क का आकार छोटा होता है।

(4) There is less energy in the brain cells. / मस्तिष्क कोशिकाओं में ऊर्जा कम होती है।

Q.188 Choose the correct statements related to learning in children from the list given below.
1. Learning is imitation and practise.
2. Learning is reading and memorising.
3. Learning is inborn and spontaneous.
4. Learning is dependent on the environmental inputs.

नीचे दी गई सूची में से बच्चों में अधिगम से संबंधित सही कथनों का चयन कीजिए।
1. अधिगम अनुकरण और अभ्यास है।
2. अधिगम पढ़ना और याद करना है।
3. अधिगम जन्मजात और स्वतःस्फूर्त है।
4. अधिगम पर्यावरणीय निविष्टियों पर निर्भर है।

(1) 2 and 3 / 2 और 3
(2) 1 and 2 / 1 और 2
(3) 3 and 4 / 3 और 4
(4) 1 and 4 / 1 और 4 ✔

Q.189 When children of 5-6 years move towards the pre-primary years, what is emphasised for them?
जब 5-6 वर्ष के बच्चे पूर्व-प्राथमिक वर्षों की ओर बढ़ते हैं, तो उनके लिए किस बात पर बल दिया जाता है?

(1) School readiness skills / स्कूल रेडिनेस कौशल (School readiness skills) ✔
(2) Mobile-based apps / मोबाइल आधारित ऐप्स (Mobile-based apps)
(3) Exam preparation / परीक्षा तैयारी (Exam preparation)
(4) Online worksheets / ऑनलाइन वर्कशीट (Online worksheets)

Q.190 In school, how can teachers identify a child with a learning disability?
स्कूल में, शिक्षक अधिगम अक्षमता वाले बच्चे की पहचान किस प्रकार कर सकते हैं?

(1) Through observation and standardised diagnostic tests / अवलोकन और मानकीकृत नैदानिक परीक्षणों के माध्यम से ✔
(2) By talking to parents / माता-पिता के साथ बातचीत करके
(3) Through physical assessment / शारीरिक मूल्यांकन से
(4) Through behavioural changes / व्यवहारिक परिवर्तनों से

Q.191 Which among the following are examples of fine motor skills?
1. Turning pages of a book
2. Skills involving large muscles
3. Skills involving eye hand coordination
4. Crawling

निम्नलिखित में से कौन-से सूक्ष्म पेशीय कौशल के उदाहरण हैं?
1. किसी पुस्तक के पन्ने पलटना
2. बड़ी मांसपेशियों से संबंधित कौशल
3. आँख-हाथ समन्वय से संबंधित कौशल
4. घुटनों के बल चलना (रेंगना)

(1) 1 and 4 / 1 और 4
(2) 2 and 3 / 2 और 3
(3) 1 and 3 / 1 और 3 ✔
(4) 2 and 4 / 2 और 4

Q.192 What is known as multiple disabilities?

बहु-दिव्यांगता (multiple disabilities) किसे कहा जाता है?

(1) Chronic disorders / दीर्घकालिक विकार

(2) Existence of more than one disability at a time / एक समय में एक से अधिक दिव्यांगता का होना ✔

(3) Neurological disorders / तंत्रिका संबंधी विकार

(4) Impaired movement control in hands and legs / हाथों और पैरों में बाधित गति नियंत्रण

Q.193 Which of the following is NOT a characteristic of special education?

निम्नलिखित में से कौन-सी, विशेष शिक्षा की विशेषता नहीं है?

(1) Highly individualised based on disability / दिव्यांगता के आधार पर अत्यधिक वैयक्तिकृत

(2) Meant only for slow learners / केवल मंद गति से सीखने वालों के लिए ✔

(3) Goal directed / लक्ष्य निर्देशित

(4) Intensive in nature / प्रकृति में गहन

Q.194 What is the most appropriate strategy for meaningful and effective communication with parents?

माता-पिता के साथ सार्थक और प्रभावी संप्रेषण की सबसे उपयुक्त कार्यनीति कौन-सी है?

(1) School notice board / स्कूल नोटिस बोर्ड (school notice board)

(2) Transport personnel / परिवहन कार्मिक (transport personnel)

(3) Home visits / गृह भ्रमण (home visits) ✔

(4) Pupils / छात्र (pupils)

Q.195 What is the main cause of neurological defects in children?

बच्चों में तंत्रिकीय दोष का मुख्य कारण क्या है?

(1) Mental illness / मानसिक बिमारी

(2) Injury during childbirth / बच्चे के जन्म के दौरान चोट

(3) Behavioural dysfunction / व्यवहारवादी शिथिलता

(4) Disorders of the central nervous system / केंद्रीय तंत्रिका तंत्र के विकार ✔

Q.196 _____ is the structural and functional unit of the brain.

_____, मस्तिष्क की संरचनात्मक और कार्यात्मक इकाई होती है।

(1) Red blood cell / लाल रक्त कोशिका

(2) Neuron / तंत्रिकोशिका ✔

(3) Nephron / वृक्काणु

(4) White blood cell / श्वेत रक्त कोशिका

QuickSarkari.com | WhatsApp Channel | Telegram: t.me/quick_sarkari

Q.197 What is the full form of NASDTEC?

NASDTEC का पूर्ण रूप क्या है?

(1) National Assessment of State Directors of Teacher Education and Certification / National Assessment of State Directors of Teacher Education and Certification (नेशनल असेसमेंट ऑफ स्टेट डायरेक्टर्स ऑफ टीचर एजुकेशन एंड सर्टिफिकेशन)

(2) National Accreditation of State Directors of Teacher Education and Certification / National Accreditation of State Directors of Teacher Education and Certification (नेशनल एक्क्रेडीटेशन ऑफ स्टेट डायरेक्टर्स ऑफ टीचर एजुकेशन एंड सर्टिफिकेशन)

(3) National Association of State Directors of Teacher Education and Certification / National Association of State Directors of Teacher Education and Certification (नेशनल एसोसिएशन ऑफ स्टेट डायरेक्टर्स ऑफ टीचर एजुकेशन एंड सर्टिफिकेशन) ✔

(4) National Association of State Directors of Teacher Education and Course / National Association of State Directors of Teacher Education and Course (नेशनल एसोसिएशन ऑफ स्टेट डायरेक्टर्स ऑफ टीचर एजुकेशन एंड कोर्स)

Q.198 Children who have started formal school without developing readiness skills _____.

जिन बच्चों ने तत्परता कौशल विकसित किए बिना औपचारिक स्कूल शुरू कर दिया है, _____।

(1) will show a lot of interest in the ECCE centre / वे ECCE केंद्र में बहुत अधिक अभिरुचि दर्शाएँगे

(2) are the best learners because they come to the centre to learn new things / वे सबसे अच्छे शिक्षार्थी हैं क्योंकि वे नई चीजें सीखने के लिए केंद्र में आते हैं

(3) have been identified as being 'at risk' for their future academic and social success / उनकी भविष्य की शैक्षणिक और सामाजिक सफलता के 'जोखिम' पर होने की पहचान की गई है ✔

(4) are likely to perform better in learning activities / वे अधिगम क्रियाकलापों में बेहतर प्रदर्शन करने की संभावना रखते हैं

Q.199 The peripheral nervous system _____.

परिधीय तंत्रिका तंत्र में _____।

(1) consists of cranial and spinal nerves / कपाल और मेरू तंत्रिकाएं होती हैं ✔

(2) consists of the spinal cord / मेरु रज्जु होता है

(3) consists of only spinal nerves / केवल मेरु तंत्रिकाएं होती हैं

(4) consists of the brain / मस्तिष्क होता है

Q.200 In school, how can teachers identify a hearing-impaired child?

स्कूल में, शिक्षक श्रवण बाधित बच्चे की पहचान किस प्रकार कर सकते हैं?

(1) Through a questionnaire / प्रश्नावली से

(2) Through case study and observation / केस स्टडी और अवलोकन से ✔

(3) Through interviews / साक्षात्कार से

(4) By giving a reading test / पठन परीक्षण देकर

Answer Key / उत्तर कुंजी

1	**2**	**3**	**4**	**5**	**6**	**7**	**8**	**9**	**10**	**11**	**12**	**13**	**14**	**15**
1	2	4	1	3	1	3	3	4	2	4	2	1	1	2
16	**17**	**18**	**19**	**20**	**21**	**22**	**23**	**24**	**25**	**26**	**27**	**28**	**29**	**30**
2	2	4	3	1	2	1	3	4	4	1	2	1	3	2
31	**32**	**33**	**34**	**35**	**36**	**37**	**38**	**39**	**40**	**41**	**42**	**43**	**44**	**45**
4	1	3	4	4	3	1	2	2	3	1	4	2	3	4

46 4	**47** 1	**48** 4	**49** 2	**50** 2	**51** 1	**52** 4	**53** 2	**54** 2	**55** 3	**56** 3	**57** 4	**58** 4	**59** 2	**60** 2
61 4	**62** 3	**63** 1	**64** 1	**65** 4	**66** 3	**67** 2	**68** 2	**69** 3	**70** 3	**71** 3	**72** 1	**73** 4	**74** 4	**75** 2
76 3	**77** 4	**78** 1	**79** 2	**80** 4	**81** 3	**82** 3	**83** 4	**84** 3	**85** 4	**86** 1	**87** 1	**88** 2	**89** 1	**90** 2
91 2	**92** 2	**93** 1	**94** 2	**95** 2	**96** 4	**97** 3	**98** 3	**99** 2	**100** 3	**101** 2	**102** 4	**103** 3	**104** 2	**105** 3
106 4	**107** 3	**108** 4	**109** 3	**110** 4	**111** 4	**112** 2	**113** 3	**114** 3	**115** 2	**116** 3	**117** 2	**118** 3	**119** 1	**120** 3
121 2	**122** 4	**123** 3	**124** 2	**125** 1	**126** 4	**127** 1	**128** 1	**129** 2	**130** 1	**131** 4	**132** 1	**133** 4	**134** 1	**135** 3
136 1	**137** 2	**138** 1	**139** 1	**140** 2	**141** 1	**142** 4	**143** 3	**144** 1	**145** 4	**146** 4	**147** 4	**148** 2	**149** 2	**150** 4
151 2	**152** 4	**153** 1	**154** 3	**155** 1	**156** 3	**157** 1	**158** 1	**159** 2	**160** 1	**161** 1	**162** 3	**163** 4	**164** 1	**165** 3
166 3	**167** 2	**168** 1	**169** 3	**170** 1	**171** 2	**172** 3	**173** 1	**174** 1	**175** 2	**176** 1	**177** 1	**178** 4	**179** 4	**180** 3
181 4	**182** 2	**183** 1	**184** 3	**185** 3	**186** 2	**187** 2	**188** 4	**189** 1	**190** 1	**191** 3	**192** 2	**193** 2	**194** 3	**195** 4
196 2	**197** 3	**198** 3	**199** 1	**200** 2										

Quick Sarkari

Participant ID	
Participant Name	
Test Center Name	
Test Date	12/08/2025
Test Time	9:00 AM – 11:00 AM
Subject	Assistant Teacher Nursery

Section : General intelligence and Reasoning Ability

Q.1 अंग्रेजी वर्णमाला क्रम पर आधारित, निम्नलिखित चार अक्षर-समूहों में से तीन एक निश्चित तरीके से समान हैं और इस प्रकार एक ग्रुप बनाते हैं। कौन-सा अक्षर-समूह उस ग्रुप से संबंधित नहीं है?
(नोट: असंगत अक्षर समूह, व्यंजनों/स्वरों की संख्या या उनकी स्थिति पर आधारित नहीं है।)

Ans
✔ 1. YHO
✘ 2. TCL
✘ 3. SBK
✘ 4. GPY

Question ID : 4410009839432
Option 1 ID : 4410093310796
Option 2 ID : 4410093310798
Option 3 ID : 4410093310799
Option 4 ID : 4410093310797

Q.2 एक निश्चित कूट भाषा में, 'LAKE' को '8697' के रूप में और 'BEAK' को '3876' के रूप में कूटबद्ध किया जाता है। दी गई कूट भाषा में 'B' का कूट क्या है?

Ans
✘ 1. 8
✔ 2. 3
✘ 3. 7
✘ 4. 6

Question ID : 4410009839439
Option 1 ID : 4410093310827
Option 2 ID : 4410093310824
Option 3 ID : 4410093310826
Option 4 ID : 4410093310825

Q.3 A, B, C, D, Q, R और S एक गोल मेज के परित: केंद्र की ओर अभिमुख होकर बैठे हैं। A के दाईं ओर से गिनने पर A और Q के बीच केवल चार व्यक्ति बैठे हैं। Q के बाईं ओर से गिनने पर Q और S के बीच केवल एक व्यक्ति बैठा है। A के बाईं ओर से गिनने पर A और R के बीच केवल दो व्यक्ति बैठे हैं। C के बाईं ओर से गिनने पर S और C के बीच केवल दो व्यक्ति बैठे हैं। C के दाईं ओर से गिनने पर C और D के बीच केवल एक व्यक्ति बैठा है। B के दाईं ओर से दूसरे स्थान पर कौन बैठा है?

Ans
✘ 1. Q
✘ 2. D
✘ 3. A
✔ 4. R

Question ID : 4410009982371
Option 1 ID : 4410093881950
Option 2 ID : 4410093881951
Option 3 ID : 4410093881952
Option 4 ID : 4410093881953

QuickSarkari.com | WhatsApp Channel | Telegram: t.me/quick_sarkari

Q.4 निम्नलिखित अक्षर और प्रतीक श्रृंखला का संदर्भ लीजिए और नीचे दिए गए प्रश्न का उत्तर दीजिए। गिनती केवल बाएँ से दाएँ की जानी है।

(बाएँ) T % ' A @ U $ K P C % D B @ M & Ω Y # E (दाएँ)

यदि श्रृंखला से सभी अक्षर हटा दिए जाएं, तो निम्नलिखित में से कौन-सा दाएं से सातवां होगा?

Ans
✔ 1. @
✘ 2. %
✘ 3. #
✘ 4. '

Question ID : 4410098389l6
Option 1 ID : 4410093308732
Option 2 ID : 4410093308735
Option 3 ID : 4410093308733
Option 4 ID : 4410093308734

Q.5 अंग्रेजी वर्णमाला क्रम पर आधारित, निम्नलिखित चार अक्षर-समूह युग्मों में से तीन एक निश्चित तरीके से समान हैं और इस प्रकार एक ग्रुप बनाते हैं। कौन-सा अक्षर-समूह युग्म उस ग्रुप से संबंधित नहीं है?
(नोट: असंगत अक्षर समूह युग्म, व्यंजनों/स्वरों की संख्या या उनकी स्थिति पर आधारित नहीं है।)

Ans
✘ 1. WG – ZI
✘ 2. DS – GU
✔ 3. NQ – QT
✘ 4. UB – XD

Question ID : 4410099822l6
Option 1 ID : 4410093881571
Option 2 ID : 4410093881570
Option 3 ID : 4410093881572
Option 4 ID : 4410093881573

Q.6 निम्नलिखित संख्या और प्रतीक शृंखला का संदर्भ लीजिए तथा नीचे दिए गए प्रश्न का उत्तर दीजिए। गिनती केवल बाएँ से दाएँ की जानी है।

(बाएँ) 1 @ 7 2 ' $ & 5 % 6 Ω 4 3 # 8 £ 9 (दाएँ)

यदि शृंखला से सभी प्रतीकों को हटा दिया जाए, तो निम्नलिखित में से कौन-सा, बाएँ से सातवां होगा?

Ans
✔ 1. 3
✘ 2. 8
✘ 3. 4
✘ 4. 9

Question ID : 4410098389l2
Option 1 ID : 4410093308679
Option 2 ID : 4410093308676
Option 3 ID : 4410093308678
Option 4 ID : 4410093308677

Q.7 दिए गए कथनों और निष्कर्षों का ध्यानपूर्वक अध्ययन कीजिए यह मानते हुए कि कथनों में दी गई जानकारी सत्य है, भले ही वह सामान्यतः ज्ञात तथ्यों से भिन्न प्रतीत होती हो. तय कीजिए कि दिए गए निष्कर्षों में से कौन-सा/से निष्कर्ष कथनों का तार्किक रूप से अनुसरण करता है/करते हैं।

कथन:
कुछ गुलाब, झाड़ियाँ हैं।
कुछ काँटे, गुलाब हैं।
सभी जंगल, झाड़ियाँ हैं।

निष्कर्ष:
(I) कुछ काँटे, झाड़ियाँ हैं।
(II) कुछ गुलाब, जंगल हैं।

Ans
✗ 1. केवल निष्कर्ष (I) अनुसरण करता है।
✗ 2. निष्कर्ष (I) और (II) दोनों अनुसरण करते हैं।
✓ 3. न तो निष्कर्ष (I) और न ही (II) अनुसरण करता है।
✗ 4. केवल निष्कर्ष (II) अनुसरण करता है।

Question ID : 4410009982384
Option 1 ID : 4410093882002
Option 2 ID : 4410093882004
Option 3 ID : 4410093882005
Option 4 ID : 4410093882003

Q.8 उस समुच्चय का चयन कीजिए जिसमें संख्याएं उसी प्रकार संबंधित हैं, जिस प्रकार निम्नलिखित समुच्चयों की संख्याएं संबंधित हैं।

(नोट: संख्याओं को उनके घटक अंकों में तोड़े बिना, पूर्ण संख्याओं पर संक्रियाएं की जानी चाहिए। उदाहरण के लिए 13 लीजिए, 13 पर संक्रियाएं जैसे कि 13 में जोड़ना/घटाना/गुणा करना, किया जा सकता है। 13 को 1 और 3 में तोड़ना तथा फिर 1 और 3 पर गणितीय संक्रियाएं करने की अनुमति नहीं है।)

(53, 57.6, 62.2)
(44, 48.6, 53.2)

Ans
✗ 1. (49, 53.6, 60.2)
✗ 2. (42, 47.6, 53.2)
✓ 3. (57, 61.6, 66.2)
✗ 4. (51, 54.6, 59.2)

Question ID : 4410009980576
Option 1 ID : 4410093874784
Option 2 ID : 4410093874782
Option 3 ID : 4410093874785
Option 4 ID : 4410093874783

Q.9 निम्नलिखित समीकरण को सही बनाने के लिए किन दो संख्याओं को परस्पर बदला जाना चाहिए?
(नोट: संपूर्ण संख्या को परस्पर बदला जाना चाहिए, न कि दी गई संख्या के अलग-अलग अंकों को।)

9 × (34 − 12) + (51 ÷ 17) × 8 + 16 × 4 = 234

Ans
✗ 1. 34 और 51
✗ 2. 8 और 9
✗ 3. 9 और 4
✓ 4. 12 और 16

Question ID : 4410009980628
Option 1 ID : 4410093874991
Option 2 ID : 4410093874990
Option 3 ID : 4410093874993
Option 4 ID : 4410093874992

Q.10 A, B, C, P, Q और R एक ही इमारत के छह अलग-अलग तलों पर रहते हैं। इमारत के सबसे निचले तल का क्रमांक 1 है, उसके ऊपर वाले तल का क्रमांक 2 है और इसी प्रकार सबसे ऊपर वाले तल का क्रमांक 6 है। केवल Q, R के ऊपर रहता है। B, R के ठीक नीचे रहता है। केवल A, P के नीचे रहता है। तीसरे तल पर कौन रहता है?

Ans
1. R
2. C
3. A
4. B

Question ID : 4410099823 25
Option 1 ID : 44100938817 68
Option 2 ID : 44100938817 66
Option 3 ID : 44100938817 69
Option 4 ID : 44100938817 67

Q.11 यदि '−' और '÷' को परस्पर बदल दिया जाए तथा '×' और '+' को परस्पर बदल दिया जाए, तो निम्नलिखित समीकरण में प्रश्न-चिह्न (?) के स्थान पर क्या आएगा?

25 + 42 − 7 × 7 ÷ 2 = ?

Ans
1. 156
2. 157
3. 158
4. 155

Question ID : 4410099806 19
Option 1 ID : 44100938749 55
Option 2 ID : 44100938749 56
Option 3 ID : 44100938749 57
Option 4 ID : 44100938749 54

Q.12 दिए गए विकल्पों में से उन संख्याओं का चयन कीजिए, जिन्हें निम्नलिखित शृंखला में प्रश्न-चिह्न (?) से प्रतिस्थापित किया जाना चाहिए।

69 ? 64 79 59 84 ?

Ans
1. 79, 94
2. 74, 54
3. 79, 99
4. 74, 94

Question ID : 4410099806 00
Option 1 ID : 44100938748 79
Option 2 ID : 44100938748 80
Option 3 ID : 44100938748 81
Option 4 ID : 44100938748 78

Q.13 एक निश्चित कूट भाषा में, 'LION' को '9315' के रूप में और 'COIL' को '7351' के रूप में कूटबद्ध किया जाता है। दी गई कूट भाषा में 'C' का कूट क्या है?

Ans
1. 7
2. 1
3. 3
4. 5

Question ID : 4410098394 40
Option 1 ID : 44100933108 28
Option 2 ID : 44100933108 29
Option 3 ID : 44100933108 31
Option 4 ID : 44100933108 30

Q.14 उस युग्म का चयन कीजिए जो नीचे दिए गए दो युग्मों के समूह के समान पैटर्न का अनुसरण करता है। दोनों युग्म समान पैटर्न का अनुसरण करते हैं।

PYG : LEC
FAW : BGS

Ans
✔ 1. XMO : TSK
✘ 2. SPQ : NTL
✘ 3. HZG : BBA
✘ 4. DYQ : HDW

Question ID : 4410009982299
Option 1 ID : 4410093881663
Option 2 ID : 4410093881664
Option 3 ID : 4410093881662
Option 4 ID : 4410093881665

Q.15 उस युग्म का चयन कीजिए जो नीचे दिए गए दो युग्मों के समूह के समान पैटर्न का अनुसरण करता है। दोनों युग्म समान पैटर्न का अनुसरण करते हैं।

TVS : NXM
FRE : ZTY

Ans
✘ 1. SPQ : NTL
✔ 2. HZG : BBA
✘ 3. DYQ : HDW
✘ 4. BRO : HMU

Question ID : 4410009982300
Option 1 ID : 4410093881668
Option 2 ID : 4410093881666
Option 3 ID : 4410093881669
Option 4 ID : 4410093881667

Q.16 L, M का भाई है। M, N की पत्नी है। N, O का पिता है। O, P की बहन है। L का P से क्या संबंध है?

Ans
✘ 1. पिता के पिता
✔ 2. माता का भाई
✘ 3. माता के पिता
✘ 4. पिता का भाई

Question ID : 4410009982329
Option 1 ID : 4410093881785
Option 2 ID : 4410093881782
Option 3 ID : 4410093881783
Option 4 ID : 4410093881784

Q.17 दिए गए विकल्पों में से उन संख्याओं का चयन कीजिए, जिन्हें निम्नलिखित शृंखला में प्रश्न-चिह्न (?) से प्रतिस्थापित किया जाना चाहिए।

8 9 13 22 38 63 ?

Ans
✘ 1. 83
✔ 2. 99
✘ 3. 93
✘ 4. 88

Question ID : 4410009980602
Option 1 ID : 4410093874886
Option 2 ID : 4410093874888
Option 3 ID : 4410093874889
Option 4 ID : 4410093874887

QuickSarkari.com | WhatsApp Channel | Telegram: t.me/quick_sarkari

Q.18 उस विकल्प का चयन करें जिसमें दी गई आकृति अंतर्निहित है। (घूर्णन की अनुमति नहीं है)

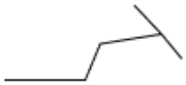

Ans

1. 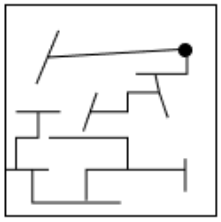

2. 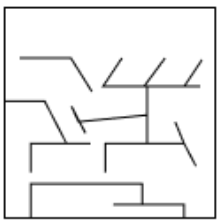

3. 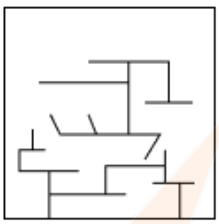

4. 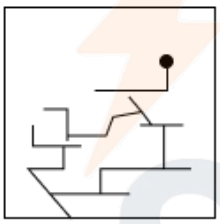

Question ID : 4410009989235
Option 1 ID : 4410093909238
Option 2 ID : 4410093909239
Option 3 ID : 4410093909240
Option 4 ID : 4410093909237

Q.19 G, H, I, J, M, N और O में से प्रत्येक की परीक्षा सोमवार से शुरू होकर रविवार को समाप्त होने वाले उसी सप्ताह के अलग-अलग दिन होती है।
G की परीक्षा गुरुवार को है तथा O की परीक्षा शनिवार को है। M की परीक्षा J से ठीक पहले है। I की परीक्षा, H की परीक्षा के बाद किसी एक दिन है। N की परीक्षा J के ठीक बाद है। I और N के बीच कितने व्यक्तियों की परीक्षा है?

Ans
1. एक
2. चार
3. तीन
4. दो

Question ID : 4410009839397
Option 1 ID : 4410093310656
Option 2 ID : 4410093310659
Option 3 ID : 4410093310658
Option 4 ID : 4410093310657

Q.20 उस समुच्चय का चयन करें जिसमें संख्याएं उसी तरह से संबंधित हैं, जिस प्रकार निम्नलिखित समुच्चयों की संख्याएं संबंधित हैं।

(नोट: संख्याओं को उनके घटक अंकों में तोड़े बिना, पूर्ण संख्याओं पर संक्रियाएं की जानी चाहिए। उदाहरण के लिए 13 लीजिए, 13 पर संक्रियाएं जैसे कि 13 में जोड़ना/घटाना/गुणा करना, किया जा सकता है। 13 को 1 और 3 में तोड़ना तथा फिर 1 और 3 पर गणितीय संक्रियाएं करने की अनुमति नहीं है।)

(29, 53, 65)
(38, 62, 74)

Ans
✔ 1. (47, 71, 83)
✘ 2. (20, 44, 58)
✘ 3. (68, 82, 104)
✘ 4. (59, 63, 75)

Question ID : 4410009980578
Option 1 ID : 4410093874790
Option 2 ID : 4410093874791
Option 3 ID : 4410093874793
Option 4 ID : 4410093874792

Section : General Awareness

Q.1 विकसित भारत 2047 लक्ष्य को प्राप्त करने के उद्देश्य से राज्य सरकारों द्वारा उपलब्धि से संबद्ध सुधारों को समर्थन प्रदान के लिए सरकार ने क्या पहल प्रस्तावित की?

Ans
✘ 1. छोटे व्यवसायों के लिए कर प्रोत्साहन
✔ 2. ₹75,000 करोड़ का 50 वर्षीय ब्याज-मुक्त ऋण
✘ 3. कृषि सुधारों के लिए प्रत्यक्ष वित्तपोषण
✘ 4. शहरी विकास के लिए अवसंरचना अनुदान

Question ID : 4410009867253
Option 1 ID : 4410093422045
Option 2 ID : 4410093422043
Option 3 ID : 4410093422044
Option 4 ID : 4410093422046

Q.2 हॉर्नबिल महोत्सव मुख्यत: किस राज्य में मनाया जाता है, जिसमें उस राज्य की जनजातियों की संस्कृति को प्रदर्शित किया जाता है?

Ans
✔ 1. नागालैंड
✘ 2. असम
✘ 3. मिज़ोरम
✘ 4. मेघालय

Question ID : 4410009232954
Option 1 ID : 4410099910248
Option 2 ID : 4410099910247
Option 3 ID : 4410099910250
Option 4 ID : 4410099910249

Q.3 राष्ट्रीय आय की गणना की 'आय विधि में, निम्नलिखित में से किसे शामिल नहीं किया जाता है?

Ans
✘ 1. मजदूरी और वेतन
✘ 2. ब्याज
✔ 3. सब्सिडी
✘ 4. लाभ

Question ID : 4410009974072
Option 1 ID : 4410093849329
Option 2 ID : 4410093849330
Option 3 ID : 4410093849331
Option 4 ID : 4410093849332

Q.4 'प्रधानमंत्री जन धन योजना' का मुख्य उद्देश्य निम्नलिखित में से कौन-सा है?

Ans
✗ 1. युवाओं में कौशल विकास को बढ़ावा देना
✗ 2. ग्रामीण क्षेत्रों में स्वच्छता और सफाई को बढ़ावा देना
✗ 3. सभी शहरी गरीबों को सस्ता आवास उपलब्ध कराना
✓ 4. बैंकिंग, बचत और बीमा जैसी वित्तीय सेवाओं तक पहुँच सुनिश्चित करना

Question ID : 4410099740 63
Option 1 ID : 4410093849295
Option 2 ID : 4410093849296
Option 3 ID : 4410093849293
Option 4 ID : 4410093849294

Q.5 निम्नलिखित में से किस युद्ध में बंगाल के नवाब सिराजुद्दौला को हराकर भारत में ब्रिटिश उपनिवेशवाद की शुरुआत हुई?

Ans
✗ 1. बक्सर का युद्ध
✗ 2. पानीपत का युद्ध
✗ 3. वांडिवाश का युद्ध
✓ 4. प्लासी का युद्ध

Question ID : 4410099726 08
Option 1 ID : 4410093843473
Option 2 ID : 4410093843475
Option 3 ID : 4410093843476
Option 4 ID : 4410093843474

Q.6 पौधों में सरल ऊतकों के संबंध में निम्नलिखित में से कौन-सा/से कथन सही है/हैं?

A. मृदूतक द्विबीजपत्री पौधों में बाह्यत्वचा के नीचे की परतों में पाया जाता है।
B. दृढ़ोतक लंबी, संकरी कोशिकाओं से बना होता है, जिनमें मोटी और लिग्निफाइड कोशिका भित्ति होती है, जिनमें कुछ या अनेक गर्त होते हैं।

Ans
✓ 1. केवल B
✗ 2. केवल A
✗ 3. न तो A और न ही B
✗ 4. A और B दोनों

Question ID : 4410091050758
Option 1 ID : 4410094152102
Option 2 ID : 4410094152101
Option 3 ID : 4410094152104
Option 4 ID : 4410094152103

Q.7 सीरिया ने _____ को हराकर भारत में आयोजित चौथा इंटरकांटिनेंटल कप फुटबॉल, 2024 जीता था।

Ans
✗ 1. बांग्लादेश
✓ 2. भारत
✗ 3. मालदीव
✗ 4. पाकिस्तान

Question ID : 4410092288 16
Option 1 ID : 4410098949 14
Option 2 ID : 4410098949 17
Option 3 ID : 4410098949 16
Option 4 ID : 4410098949 15

Q.8 निम्नलिखित में से किस धर्म की उत्पत्ति 2500 वर्ष पूर्व भारत में हुई थी?

Ans
✔ 1. बौद्ध धर्म
✘ 2. ईसाई
✘ 3. इस्लाम
✘ 4. यहूदी

Question ID : 4410099749 80
Option 1 ID : 4410093852961
Option 2 ID : 4410093852963
Option 3 ID : 4410093852962
Option 4 ID : 4410093852964

Q.9 "पिंजरे वाली यक्षी (Yakshi with Cage)" कलाकृति किसके काल में प्रयुक्त हुई थी?

Ans
✘ 1. मौर्य काल
✘ 2. गुप्त काल
✔ 3. कुषाण काल
✘ 4. सातवाहन काल

Question ID : 4410099726 71
Option 1 ID : 4410093843725
Option 2 ID : 4410093843726
Option 3 ID : 4410093843727
Option 4 ID : 4410093843728

Q.10 निम्नलिखित में से कौन-सा/से कथन सही है/हैं?

A. बेरी बेरी रोग विटामिन D की कमी के कारण होता है।
B. स्कर्वी रोग विटामिन C की कमी के कारण होता है।

Ans
✘ 1. न तो A और न ही B
✔ 2. केवल B
✘ 3. A और B दोनों
✘ 4. केवल A

Question ID : 4410091050762
Option 1 ID : 4410094152120
Option 2 ID : 4410094152118
Option 3 ID : 4410094152119
Option 4 ID : 4410094152117

Q.11 निम्नलिखित में से किस राज्य/केंद्र शासित प्रदेश में सर्वाधिक वार्षिक वर्षा होती है?

Ans
✘ 1. राजस्थान
✘ 2. गुजरात
✘ 3. लद्दाख
✔ 4. मेघालय

Question ID : 4410099750 09
Option 1 ID : 4410093853080
Option 2 ID : 4410093853079
Option 3 ID : 4410093853078
Option 4 ID : 4410093853077

Quick Sarkari

Q.12 निम्नलिखित में से किस नदी का उद्गम मानसरोवर झील से होता है?

Ans
✔ 1. ब्रह्मपुत्र
✘ 2. कोसी
✘ 3. यमुना
✘ 4. व्यास

Question ID : 4410099750l5
Option 1 ID : 4410093853103
Option 2 ID : 4410093853104
Option 3 ID : 4410093853102
Option 4 ID : 4410093853101

Q.13 भारतीय संविधान के किस अनुच्छेद में मंत्रिपरिषद की संरचना का प्रावधान दिया गया है?

Ans
✘ 1. अनुच्छेद 77
✘ 2. अनुच्छेद 76
✔ 3. अनुच्छेद 74
✘ 4. अनुच्छेद 75

Question ID : 4410099731l0
Option 1 ID : 4410093845724
Option 2 ID : 4410093845723
Option 3 ID : 4410093845721
Option 4 ID : 4410093845722

Q.14 सदियों से मनाया जाने वाला 'श्री राम-जानकी विवाह पंचमी महोत्सव' बुंदेलखंड की अयोध्या के नाम से प्रसिद्ध किस स्थान पर मनाया जाता है?

Ans
✘ 1. चित्रकूट
✘ 2. महोबा
✘ 3. पन्ना
✔ 4. ओरछा

Question ID : 4410092329O4
Option 1 ID : 4410099l0049
Option 2 ID : 4410099l0050
Option 3 ID : 4410099l0047
Option 4 ID : 4410099l0048

Q.15 2024 के आम चुनावों में राष्ट्रीय जनतांत्रिक गठबंधन (NDA) ने कितनी लोकसभा सीटें जीतीं, जिससे उन्हें सरकार बनाने का अवसर मिला?

Ans
✘ 1. 272
✘ 2. 240
✘ 3. 297
✔ 4. 293

Question ID : 4410092283l2
Option 1 ID : 4410098930l9
Option 2 ID : 4410098930l8
Option 3 ID : 4410098930l1
Option 4 ID : 4410098930l0

Q.16 भारतीय संविधान का कौन-सा अनुच्छेद सर्वोच्च न्यायालय की स्थापना और गठन से संबंधित है?

Ans
✗ 1. अनुच्छेद 143
✗ 2. अनुच्छेद 155
✓ 3. अनुच्छेद 124
✗ 4. अनुच्छेद 121

Question ID : 4410099731 86
Option 1 ID : 4410093845787
Option 2 ID : 4410093845788
Option 3 ID : 4410093845786
Option 4 ID : 4410093845785

Q.17 निम्नलिखित में से किस फार्मास्यूटिकल कंपनी ने लिराफिट ब्रांड नाम के अंतर्गत मधुमेह रोधी दवा, लिराग्लूटाइड (Liraglutide) का बायोसिमिलर लॉन्च किया है?

Ans
✓ 1. ग्लेनमार्क (Glenmark)
✗ 2. सीरम इंस्टीट्यूट ऑफ इंडिया (Serum Institute of India)
✗ 3. भारत बायोटेक (Bharat Biotech)
✗ 4. सन फार्मा (Sun Pharma)

Question ID : 4410092287 85
Option 1 ID : 4410098947 90
Option 2 ID : 4410098947 93
Option 3 ID : 4410098947 91
Option 4 ID : 4410098947 92

Q.18 वर्धन साम्राज्य का अंतिम शासक कौन था?

Ans
✗ 1. राजेंद्र चोल
✓ 2. हर्षवर्धन
✗ 3. राज्यवर्धन
✗ 4. कनिष्क

Question ID : 4410099725 89
Option 1 ID : 4410093843398
Option 2 ID : 4410093843400
Option 3 ID : 4410093843397
Option 4 ID : 4410093843399

Q.19 भारतीय संविधान के निम्नलिखित में से किस अनुच्छेद में प्रत्येक नागरिक को वनों और वन्यजीवों सहित प्राकृतिक पर्यावरण की रक्षा करने और उसका संवर्धन करने का मौलिक कर्तव्य दिया गया है?

Ans
✗ 1. अनुच्छेद 21
✓ 2. अनुच्छेद 51A (g)
✗ 3. अनुच्छेद 14
✗ 4. अनुच्छेद 32

Question ID : 4410099731 76
Option 1 ID : 4410093845745
Option 2 ID : 4410093845746
Option 3 ID : 4410093845748
Option 4 ID : 4410093845747

Q.20 भारतीय संविधान का कौन-सा अनुच्छेद, संघ की राजभाषा से संबंधित है?

Ans
✗ 1. अनुच्छेद 351
✗ 2. अनुच्छेद 350
✓ 3. अनुच्छेद 343
✗ 4. अनुच्छेद 345

Question ID : 4410009232633
Option 1 ID : 4410009908964
Option 2 ID : 4410009908966
Option 3 ID : 4410009908965
Option 4 ID : 4410009908963

Section : Arithmetical and Numerical Ability

Q.1 एक ठोस धात्विक घनाभ का भार 9 kg है। यदि मूल ठोस धात्विक घनाभ की सभी विमाओं से एक-तिहाई भाग कम कर दिया जाए, तो बचे लघु ठोस घनाभ का भार (kg में, दशमलव के दो स्थान तक) कितना होगा?
(द्रव्यमान = घनत्व × आयतन)

Ans
✓ 1. 0.33
✗ 2. 33.33
✗ 3. 0.27
✗ 4. 27.35

Question ID : 4410009989008
Option 1 ID : 4410093908339
Option 2 ID : 4410093908337
Option 3 ID : 4410093908340
Option 4 ID : 4410093908338

Q.2 एक कार 36 km/hr की चाल से चल रही है। $3\frac{3}{5}$ km की दूरी तय करने में उसे कितने मिनट लगेंगे?

Ans
✗ 1. 10
✗ 2. 5
✗ 3. 12
✓ 4. 6

Question ID : 4410009988251
Option 1 ID : 4410093905295
Option 2 ID : 4410093905293
Option 3 ID : 4410093905296
Option 4 ID : 4410093905294

Q.3 $(2\sqrt{5}+\sqrt{2})$ और $(2\sqrt{5}-\sqrt{2})$ के बीच माध्यानुपाती ज्ञात कीजिए।

Ans
✗ 1. $\sqrt{13}$
✓ 2. $3\sqrt{2}$
✗ 3. $\sqrt{2}$
✗ 4. $9\sqrt{3}$

Question ID : 4410009988334
Option 1 ID : 4410093905628
Option 2 ID : 4410093905627
Option 3 ID : 4410093905626
Option 4 ID : 4410093905625

QuickSarkari.com | WhatsApp Channel | Telegram: t.me/quick_sarkari

Q.4 सौरव एक निश्चित धनराशि को 20% वार्षिक ब्याज दर पर जमा करता है, जो वार्षिक रूप से संयोजित होती है। 2 वर्षों के अंत में, वह कुल ₹66,168 प्राप्त करता है। सौरव द्वारा जमा की गई धनराशि (₹ में) ज्ञात कीजिए।

Ans
1. 45,590
2. 46,330
3. 45,950
4. 45,601

Question ID : 4410099881 72
Option 1 ID : 4410093904978
Option 2 ID : 4410093904979
Option 3 ID : 4410093904977
Option 4 ID : 4410093904980

Q.5 निम्नलिखित व्यंजक का सरलीकृत मान ज्ञात कीजिए।

$$\left((8)^{\frac{1}{3}} \times \sqrt{9} + 3\right)^2 \div 81$$

Ans
1. 8
2. 9
3. 3
4. 1

Question ID : 4410099884 02
Option 1 ID : 4410093905899
Option 2 ID : 4410093905900
Option 3 ID : 4410093905898
Option 4 ID : 4410093905897

Q.6 आठ संख्याओं का औसत 55 है, और प्रथम सात संख्याओं का औसत 54 है। आठवीं संख्या ज्ञात कीजिए।

Ans
1. 55
2. 61
3. 54
4. 62

Question ID : 4410099882 28
Option 1 ID : 4410093905202
Option 2 ID : 4410093905204
Option 3 ID : 4410093905203
Option 4 ID : 4410093905201

Q.7 एक विक्रेता किसी वस्तु के अंकित मूल्य पर 30% की छूट प्रदान करता है और फिर भी उसपर 10% का लाभ अर्जित करता है। अंकित मूल्य, क्रय मूल्य से कितने प्रतिशत अधिक है? (दशमलव के दो स्थानों तक पूर्णांकित)

Ans
1. 57.14%
2. 45.45%
3. 26.67%
4. 33.33%

Question ID : 4410098359 04
Option 1 ID : 4410093296732
Option 2 ID : 4410093296733
Option 3 ID : 4410093296735
Option 4 ID : 4410093296734

QuickSarkari.com | WhatsApp Channel | Telegram: t.me/quick_sarkari

Q.8 A, B और C ने क्रमशः ₹1,20,000, ₹90,000 और ₹60,000 का निवेश किया। A ने 6 महीने, B ने 8 महीने और C ने 12 महीने के लिए निवेश किया। वर्ष के अंत में, कुल लाभ ₹96,000 था। लाभ वितरण से पहले, ₹12,000 कार्यालय रखरखाव के लिए रखे गए और C को परियोजना के पर्यवेक्षण के लिए ₹4,000 अतिरिक्त दिए गए। शेष लाभ को पूँजी × समय के अनुपात में बाँटा गया। C को प्राप्त कुल धनराशि ज्ञात कीजिए। (अपने उत्तर को निकटतम सैकड़े में पूर्णांकित कीजिए।)

Ans
✗ 1. ₹30,500
✗ 2. ₹30,600
✗ 3. ₹30,800
✓ 4. ₹30,700

Question ID : 4410099881 22
Option 1 ID : 4410093904780
Option 2 ID : 4410093904777
Option 3 ID : 4410093904779
Option 4 ID : 4410093904778

Q.9 निम्नलिखित तालिका क्रमागत 3 महीनों में पाँच अलग-अलग उत्पादों (A, B, C, D और E) की बिक्री (₹ हजार में) दर्शाती है। तालिका का ध्यानपूर्वक अध्ययन कीजिए और नीचे दिए गए प्रश्न का उत्तर दीजिए।

उत्पाद	जनवरी	फरवरी	मार्च
A	120	150	135
B	200	180	210
C	160	190	180
D	130	120	150
E	140	160	170

किस उत्पाद ने 3 महीनों में सर्वाधिक औसत मासिक बिक्री दर्शाई है?

Ans
✗ 1. E
✓ 2. B
✗ 3. A
✗ 4. C

Question ID : 4410092502 44
Option 1 ID : 4410099747 14
Option 2 ID : 4410099747 12
Option 3 ID : 4410099747 11
Option 4 ID : 4410099747 13

Q.10 समान MRP वाली समान वस्तुओं पर '8 खरीदें, 2 मुफ्त पाएं' स्कीम में कितने % छूट दी जा रही है?

Ans
✗ 1. 21
✓ 2. 20
✗ 3. 25
✗ 4. 26

Question ID : 4410099881 27
Option 1 ID : 4410093904799
Option 2 ID : 4410093904797
Option 3 ID : 4410093904798
Option 4 ID : 4410093904800

Q.11 प्रथम वर्ष में अर्जुन के वजन में 10% की वृद्धि हुई तथा अगले वर्ष 15% की और वृद्धि हुई। तीसरे वर्ष में इसमें 11% की कमी हुई। दिए गए 3 वर्षों में उसके वजन में कुल परिवर्तन (लगभग % में) ज्ञात कीजिए।

Ans
✓ 1. 12.59% वृद्धि
✗ 2. 10% कमी
✗ 3. 12.59% कमी
✗ 4. 14% वृद्धि

Question ID : 4410099883 75
Option 1 ID : 4410093905792
Option 2 ID : 4410093905790
Option 3 ID : 4410093905791
Option 4 ID : 4410093905789

Q.12 दो संख्याओं 105 और 180 का महत्तम समापवर्तक और लघुत्तम समापवर्त्य क्रमशः 'x' और 1260 है। 'x' का मान ज्ञात कीजिए।

Ans
1. 10
2. 8
3. 20
4. 15

Question ID : 4410099883 44
Option 1 ID : 4410093905668
Option 2 ID : 4410093905665
Option 3 ID : 4410093905667
Option 4 ID : 4410093905666

Q.13 एक विक्रेता ने एक रुपये में 7 चॉकलेट बेचीं, जिससे उसे 100% का लाभ प्राप्त हुआ। उसने एक रुपये में कितनी चॉकलेट खरीदी थीं?

Ans
1. 16
2. 14
3. 20
4. 18

Question ID : 4410099882 62
Option 1 ID : 4410093905338
Option 2 ID : 4410093905337
Option 3 ID : 4410093905340
Option 4 ID : 4410093905339

Q.14 50 km की दूरी तय करते समय, एक व्यक्ति ने देखा कि 2 घंटे 20 मिनट साइकिल चलाने के बाद, उसके द्वारा तय की गई दूरी, शेष दूरी की $\frac{3}{5}$ थी। उसकी चाल लगभग (km/hr में) कितनी थी?

Ans
1. 7.5
2. 8
3. 9.4
4. 5.9

Question ID : 4410099881 35
Option 1 ID : 4410093904832
Option 2 ID : 4410093904829
Option 3 ID : 4410093904831
Option 4 ID : 4410093904830

Q.15 एक व्यक्ति को वेतन के रूप में प्रति माह ₹6,800 प्राप्त होते हैं। वह प्रत्येक माह अपने वेतन का 27% बचाता है। उसका प्रति माह व्यय (₹ में) ज्ञात कीजिए।

Ans
1. 4,900
2. 4,927
3. 4,964
4. 5,046

Question ID : 4410099881 86
Option 1 ID : 4410093905036
Option 2 ID : 4410093905035
Option 3 ID : 4410093905033
Option 4 ID : 4410093905034

QuickSarkari.com | WhatsApp Channel | Telegram: t.me/quick_sarkari

Q.16 6.5, 10.6, 19.8 और a का औसत 14 है। a का मान ज्ञात कीजिए।

Ans
✗ 1. 20.1
✗ 2. 21.1
✓ 3. 19.1
✗ 4. 18.1

Question ID : 4410099883l9
Option 1 ID : 4410093905567
Option 2 ID : 4410093905568
Option 3 ID : 4410093905565
Option 4 ID : 4410093905566

Q.17 X किसी कार्य को d दिनों में पूरा कर सकता है, Y उसी कार्य को 12 दिनों में कर सकता है। यदि X और Y मिलकर कार्य को $5\frac{1}{7}$ दिनों में पूरा कर सकते हैं, तो d ज्ञात कीजिए।

Ans
✗ 1. $\frac{1}{9}$
✗ 2. $\frac{1}{8}$
✗ 3. 8
✓ 4. 9

Question ID : 4410099883 27
Option 1 ID : 4410093905597
Option 2 ID : 4410093905600
Option 3 ID : 4410093905599
Option 4 ID : 4410093905598

Q.18 उस घनाभाकार टंकी का आयतन (m^3 में) ज्ञात कीजिए, जिसकी विमाएं 10 m × 28 m × 13 m के रूप में दी गई हैं।

Ans
✗ 1. 3679
✗ 2. 3610
✗ 3. 3595
✓ 4. 3640

Question ID : 4410099889 96
Option 1 ID : 4410093908291
Option 2 ID : 4410093908290
Option 3 ID : 4410093908292
Option 4 ID : 4410093908289

Q.19 वह अवधि (वर्ष में) ज्ञात कीजिए जिसमें ₹1,200 की धनराशि 5% वार्षिक साधारण ब्याज की दर से, ₹2,340 हो जाएगी।

Ans
✗ 1. 20
✓ 2. 19
✗ 3. 18
✗ 4. 21

Question ID : 4410099882 70
Option 1 ID : 4410093905371
Option 2 ID : 4410093905369
Option 3 ID : 4410093905370
Option 4 ID : 4410093905372

QuickSarkari.com | WhatsApp Channel | Telegram: t.me/quick_sarkari

Q.20 एक टंकी, पाइप P द्वारा 6 घंटे में और पाइप Q द्वारा 10 घंटे में भर जाती है। पाइप P को 8:00 a.m. पर खोला जाता है। यदि पाइप Q को भी 9:00 a.m. पर खोल दिया जाता है, तो टंकी किस समय भर जाएगी?

Ans
1. 12:17:30 p.m.
2. 12:07:30 p.m.
3. 11:07:30 a.m.
4. 11:27:30 a.m.

Question ID : 4410099883 24
Option 1 ID : 4410093905587
Option 2 ID : 4410093905585
Option 3 ID : 4410093905586
Option 4 ID : 4410093905588

Section : Test of English Language and Comprehension

Q.1 Select the most appropriate option to fill in the blank.
Sholay is _____ movie that has been popular among people for years now.

Ans
1. more entertain
2. most entertainer
3. an entertain
4. an entertaining

Question ID : 4410098423 85
Option 1 ID : 4410093322609
Option 2 ID : 4410093322611
Option 3 ID : 4410093322608
Option 4 ID : 4410093322610

Q.2 Select the most appropriate adjective to fill in the blank.

Tia and Rocky are good friends but the former is better than the _____.

Ans
1. later
2. last
3. latter
4. next

Question ID : 4410098423 92
Option 1 ID : 4410093322636
Option 2 ID : 4410093322638
Option 3 ID : 4410093322637
Option 4 ID : 4410093322639

Q.3 Sentences of a paragraph are given below in jumbled order. Arrange the sentences in the correct order to form a meaningful and coherent paragraph.

P – One of the most dramatic examples in nature of ill wind that blows goodness is lightning.
Q – In its aerial form, nitrogen is insoluble, unusable and is in need of transformation.
R – Nitrogen — an essential food for plants — is an abundant resource, with about 22 million tons of it floating over each square mile of earth.
S – Lightning starts the series of chemical reactions that need to happen to nitrogen, ultimately helping it nourish our earth.

Ans
1. RQSP
2. RSPQ
3. QPRS
4. SQRP

Question ID : 4410098375 48
Option 1 ID : 4410093303293
Option 2 ID : 4410093303292
Option 3 ID : 4410093303295
Option 4 ID : 4410093303294

QuickSarkari.com | WhatsApp Channel | Telegram: t.me/quick_sarkari

Q.4 Select the INCORRECTLY spelt word.

Ans
✔ 1. Reconcilation
✘ 2. Abomination
✘ 3. Abbreviation
✘ 4. Accentuation

Question ID : 4410009845235
Option 1 ID : 44100933338l4
Option 2 ID : 44100933338l3
Option 3 ID : 44100933338l5
Option 4 ID : 44100933338l2

Q.5 Sentences of a paragraph are given below in jumbled order. Arrange the sentences in the correct order to form a meaningful and coherent paragraph.

A. However, with the increases in both human populations and the use of medications, new kinds of pollutants that are difficult to remove or break down into less toxic substances have become a problem in most wastewater treatment facilities.
B. This has compounded concerns about the consumption of these newer pollutants and their potential effects on health, given their often unknown impact on our digestive systems.
C. Drinking water polluted with microorganisms can result in diseases such as cholera, diarrhoea, and many more, underscoring the importance of water purification before consumption.
D. Hence, efforts are focused on developing better wastewater treatment systems to address these issues and ensure people have access to safe, treated water.

Ans
✘ 1. CADB
✘ 2. CBDA
✘ 3. CBAD
✔ 4. CABD

Question ID : 4410009837573
Option 1 ID : 44100933033394
Option 2 ID : 44100933033395
Option 3 ID : 44100933033393
Option 4 ID : 44100933033392

Q.6 Select the option that can be used as a one-word substitute for the given group of words/phrase.
The crime of secretly taking money that is in your care or that belongs to an organisation or business you work for.

Ans
✘ 1. Fraud
✘ 2. Exaggeration
✔ 3. Embezzlement
✘ 4. Theft

Question ID : 4410009837578
Option 1 ID : 44100933034l3
Option 2 ID : 44100933034l4
Option 3 ID : 44100933034l2
Option 4 ID : 44100933034l5

Q.7 Select the most appropriate article to fill in the blank.

_____ Prime Minister will address the nation tomorrow.

Ans
✘ 1. No article needed
✔ 2. The
✘ 3. An
✘ 4. A

Question ID : 4410009842396
Option 1 ID : 44100933226555
Option 2 ID : 44100933226554
Option 3 ID : 44100933226553
Option 4 ID : 44100933226552

Q.8 Select the grammatically correct option to replace the underlined segment in the given sentence. If you don't find any error, mark 'No error' as your answer.
If you run <u>out of stream</u>, you stop doing something because you have no more energy or enthusiasm left.

Ans
✗ 1. out of storm
✓ 2. out of steam
✗ 3. out of stock
✗ 4. No error

Question ID : 4410009845223
Option 1 ID : 4410093333764
Option 2 ID : 4410093333765
Option 3 ID : 4410093333766
Option 4 ID : 4410093333767

Q.9 Select the most appropriate adverb to fill in the blank.
My aunt _____ comes to see us. The last time I met her was four years ago.

Ans
✗ 1. often
✗ 2. randomly
✓ 3. rarely
✗ 4. always

Question ID : 4410091006961
Option 1 ID : 4410093979444
Option 2 ID : 4410093979445
Option 3 ID : 4410093979443
Option 4 ID : 4410093979446

Q.10 Select the most appropriate articles to fill in the blanks.

There is _____ persistent and erroneous belief that _____ Eskimos have 50 or 70 or 300 words for snow.

Ans
✗ 1. an; the
✗ 2. a; an
✓ 3. a; the
✗ 4. a; a

Question ID : 4410009842398
Option 1 ID : 4410093322663
Option 2 ID : 4410093322661
Option 3 ID : 4410093322662
Option 4 ID : 4410093322660

Q.11 Select the most appropriate option that can substitute the underlined segment in the given sentence.
Rajiv was working on a very secret formula which took 8 years to develop. Now, it proves that <u>good works take time</u>.

Ans
✗ 1. It's not over till it's over
✗ 2. Fortune favours the bold
✓ 3. Rome was not built in a day
✗ 4. The pen is mightier than sword

Question ID : 4410091054018
Option 1 ID : 4410094165143
Option 2 ID : 4410094165141
Option 3 ID : 4410094165144
Option 4 ID : 4410094165142

QuickSarkari.com | WhatsApp Channel | Telegram: t.me/quick_sarkari

Q.12 Select the option that can be used as a one-word substitute for the underlined word segment in the given sentence.

The author often referred to the legendary warrior with a respectful descriptive phrase that highlighted his bravery and unmatched skill in battle.

Ans
✔ 1. an epithet
✘ 2. an epigram
✘ 3. an epitaph
✘ 4. an epitome

Question ID : 4410009837564
Option 1 ID : 4410093303358
Option 2 ID : 4410093303357
Option 3 ID : 4410093303356
Option 4 ID : 4410093303359

Q.13 Select the most appropriate ANTONYM of the given word.

Fierce

Ans
✘ 1. Savage
✘ 2. Bestial
✘ 3. Ravenous
✔ 4. Gentle

Question ID : 4410009845240
Option 1 ID : 4410093333832
Option 2 ID : 4410093333834
Option 3 ID : 4410093333835
Option 4 ID : 4410093333833

Q.14 Select the most appropriate option to fill in the blank.
The sudden demise of his wife moved everyone _____ tears.

Ans
✘ 1. at
✘ 2. with
✘ 3. from
✔ 4. to

Question ID : 4410091006958
Option 1 ID : 4410093979434
Option 2 ID : 4410093979432
Option 3 ID : 4410093979431
Option 4 ID : 4410093979433

Q.15 Select the most appropriate ANTONYM of the given word.

Summit

Ans
✘ 1. Average
✔ 2. Bottom
✘ 3. Regular
✘ 4. Head

Question ID : 4410091054010
Option 1 ID : 4410094165110
Option 2 ID : 4410094165111
Option 3 ID : 4410094165112
Option 4 ID : 4410094165109

QuickSarkari.com | WhatsApp Channel | Telegram: t.me/quick_sarkari

Comprehension:

Read the passage and answer the question that follows.

Emotional health is a critical piece of your total wellness. How you feel on the inside influences not only your mental wellness but your physical well-being as well. By learning to practice emotional self-care, you will be more likely to enjoy a happier, healthier life. Emotional self-care refers to the act of becoming aware of and identifying what you are feeling and allowing yourself to channel those feelings in a way that benefits your overall wellness. Your emotions directly correlate to how you feel every day. When you have a healthy attitude about your emotions and know how to express yourself, you will be better equipped to handle the trials and tribulations of life. When you are not in touch with your own emotions, you are more likely to experience depression, stress, anxiety, and other mental health issues. Since everyone experiences different emotions, there are benefits to gaining a better understanding of your own feelings. By practicing emotional self-care, you will give yourself a head start on leading a happier, healthier life. It's natural to hold your emotions inside, but doing so can actually be quite harmful. One of the most important steps in emotional self-care is learning to feel more deeply and becoming more in tune with your feelings. Problems may begin to materialise and then snowball into bigger issues when emotions are internalised, rather than expressed. When you allow yourself to feel, you will begin to heal and experience peace and happiness.

SubQuestion No : 16

Q.16 Select the most appropriate synonym of the given word.
Tribulation 951

Ans
✗ 1. Contentment

✗ 2. Uncultured

✓ 3. Adversity

✗ 4. Pleasure

Question ID : 44100910628 15
Option 1 ID : 44100941991 38
Option 2 ID : 44100941991 41
Option 3 ID : 44100941991 39
Option 4 ID : 44100941991 40

Comprehension:

Read the passage and answer the question that follows.

Emotional health is a critical piece of your total wellness. How you feel on the inside influences not only your mental wellness but your physical well-being as well. By learning to practice emotional self-care, you will be more likely to enjoy a happier, healthier life. Emotional self-care refers to the act of becoming aware of and identifying what you are feeling and allowing yourself to channel those feelings in a way that benefits your overall wellness. Your emotions directly correlate to how you feel every day. When you have a healthy attitude about your emotions and know how to express yourself, you will be better equipped to handle the trials and tribulations of life. When you are not in touch with your own emotions, you are more likely to experience depression, stress, anxiety, and other mental health issues. Since everyone experiences different emotions, there are benefits to gaining a better understanding of your own feelings. By practicing emotional self-care, you will give yourself a head start on leading a happier, healthier life. It's natural to hold your emotions inside, but doing so can actually be quite harmful. One of the most important steps in emotional self-care is learning to feel more deeply and becoming more in tune with your feelings. Problems may begin to materialise and then snowball into bigger issues when emotions are internalised, rather than expressed. When you allow yourself to feel, you will begin to heal and experience peace and happiness.

SubQuestion No : 17

Q.17 What is the meaning of the word 'snowball' here?952

Ans
✗ 1. A type of cocktail

✗ 2. To lower something

✗ 3. A ball made of snow

✓ 4. To quickly grow bigger

Question ID : 44100910628 16
Option 1 ID : 44100941991 45
Option 2 ID : 44100941991 44
Option 3 ID : 44100941991 42
Option 4 ID : 44100941991 43

Comprehension:

Read the passage and answer the question that follows.

Emotional health is a critical piece of your total wellness. How you feel on the inside influences not only your mental wellness but your physical well-being as well. By learning to practice emotional self-care, you will be more likely to enjoy a happier, healthier life. Emotional self-care refers to the act of becoming aware of and identifying what you are feeling and allowing yourself to channel those feelings in a way that benefits your overall wellness. Your emotions directly correlate to how you feel every day. When you have a healthy attitude about your emotions and know how to express yourself, you will be better equipped to handle the trials and tribulations of life. When you are not in touch with your own emotions, you are more likely to experience depression, stress, anxiety, and other mental health issues. Since everyone experiences different emotions, there are benefits to gaining a better understanding of your own feelings. By practicing emotional self-care, you will give yourself a head start on leading a happier, healthier life. It's natural to hold your emotions inside, but doing so can actually be quite harmful. One of the most important steps in emotional self-care is learning to feel more deeply and becoming more in tune with your feelings. Problems may begin to materialise and then snowball into bigger issues when emotions are internalised, rather than expressed. When you allow yourself to feel, you will begin to heal and experience peace and happiness.

SubQuestion No : 18

Q.18 Which of the following is true according to the passage?3

Ans
✔ 1. Emotional self-care benefits your overall wellness.

✘ 2. When you know how to express yourself, you will invite jealousy and hatred.

✘ 3. How you feel on the inside does not influences your physical well-being as well.

✘ 4. By practicing emotional self-care, you will develop the capacity to heal others.

Question ID : 44100910628l7
Option 1 ID : 44100941991l8
Option 2 ID : 44100941991l9
Option 3 ID : 44100941991l6
Option 4 ID : 44100941991l7

Comprehension:

Read the passage and answer the question that follows.

Emotional health is a critical piece of your total wellness. How you feel on the inside influences not only your mental wellness but your physical well-being as well. By learning to practice emotional self-care, you will be more likely to enjoy a happier, healthier life. Emotional self-care refers to the act of becoming aware of and identifying what you are feeling and allowing yourself to channel those feelings in a way that benefits your overall wellness. Your emotions directly correlate to how you feel every day. When you have a healthy attitude about your emotions and know how to express yourself, you will be better equipped to handle the trials and tribulations of life. When you are not in touch with your own emotions, you are more likely to experience depression, stress, anxiety, and other mental health issues. Since everyone experiences different emotions, there are benefits to gaining a better understanding of your own feelings. By practicing emotional self-care, you will give yourself a head start on leading a happier, healthier life. It's natural to hold your emotions inside, but doing so can actually be quite harmful. One of the most important steps in emotional self-care is learning to feel more deeply and becoming more in tune with your feelings. Problems may begin to materialise and then snowball into bigger issues when emotions are internalised, rather than expressed. When you allow yourself to feel, you will begin to heal and experience peace and happiness.

SubQuestion No : 19

Q.19 Select the most appropriate option to complete the following sentence.
Healing begins when _____.954

Ans
✘ 1. you are not in tune with your emotions

✔ 2. you allow yourself to feel your emotions

✘ 3. you listen to your seniors and well-wishers

✘ 4. you internalise your emotions without expressing

Question ID : 44100910628l8
Option 1 ID : 44100941991l50
Option 2 ID : 44100941991l51
Option 3 ID : 44100941991l52
Option 4 ID : 44100941991l53

Comprehension:

Read the passage and answer the question that follows.

Emotional health is a critical piece of your total wellness. How you feel on the inside influences not only your mental wellness but your physical well-being as well. By learning to practice emotional self-care, you will be more likely to enjoy a happier, healthier life. Emotional self-care refers to the act of becoming aware of and identifying what you are feeling and allowing yourself to channel those feelings in a way that benefits your overall wellness. Your emotions directly correlate to how you feel every day. When you have a healthy attitude about your emotions and know how to express yourself, you will be better equipped to handle the trials and tribulations of life. When you are not in touch with your own emotions, you are more likely to experience depression, stress, anxiety, and other mental health issues. Since everyone experiences different emotions, there are benefits to gaining a better understanding of your own feelings. By practicing emotional self-care, you will give yourself a head start on leading a happier, healthier life. It's natural to hold your emotions inside, but doing so can actually be quite harmful. One of the most important steps in emotional self-care is learning to feel more deeply and becoming more in tune with your feelings. Problems may begin to materialise and then snowball into bigger issues when emotions are internalised, rather than expressed. When you allow yourself to feel, you will begin to heal and experience peace and happiness.

SubQuestion No : 20

Q.20 When do we feel mental problems, as per the passage?955

Ans
✗ 1. When we allow ourselves to feel

✗ 2. When we overthink about things

✗ 3. When any obstacle comes in our lives

✓ 4. When we are not in touch with our emotions

Question ID : 44100910628l9
Option 1 ID : 44100941991S6
Option 2 ID : 44100941991S7
Option 3 ID : 44100941991S4
Option 4 ID : 44100941991S5

Section : Test of Hindi Language and Comprehension

Q.1 दिए गए विकल्प में से क्रिया के उचित भेद को चुन कर वाक्य पूर्ण करें –

रोहन ने किताब खरीदी। वाक्य में ..... क्रिया है।

Ans
✗ 1. नामधातु क्रिया

✗ 2. अकर्मक क्रिया

✓ 3. सकर्मक क्रिया

✗ 4. प्रेरणार्थक क्रिया

Question ID : 44100932315S
Option 1 ID : 44100912588Ol
Option 2 ID : 44100912587Sl
Option 3 ID : 44100912587S9
Option 4 ID : 44100912588OO

Q.2 नीचे दिए गए चार विकल्पों में से कोई एक सही समान अर्थ वाले शब्द का चुनाव कीजिए।

वृत्ति–

Ans
✗ 1. वृत्तान्त

✗ 2. वर्णिक छन्द

✓ 3. स्वभाव

✗ 4. आच्छादित

Question ID : 44100931l302
Option 1 ID : 44100912116S5
Option 2 ID : 44100912116S7
Option 3 ID : 44100912116S6
Option 4 ID : 44100912116S8

Q.3 दिए गए वाक्य के किस भाग में त्रुटि है?
"अहा! कितना रमणीय पर्वतिय दृश्य है!"

Ans
✗ 1. अहा!
✗ 2. कितना
✗ 3. रमणीय
✓ 4. पर्वतिय दृश्य है

Question ID : 4410093l8477
Option 1 ID : 4410091240205
Option 2 ID : 4410091240206
Option 3 ID : 4410091240207
Option 4 ID : 4410091240208

Q.4 "किसी के दुःख से दुखी होकर उस पर दया करना" निम्न वाक्यांश के लिए एक शब्द कौन सा है?

Ans
✗ 1. अभिलाषा
✗ 2. अभिनन्दन
✓ 3. अनुकम्पा
✗ 4. फलाहारी

Question ID : 4410093609l7
Option 1 ID : 4410091409669
Option 2 ID : 4410091409668
Option 3 ID : 4410091409667
Option 4 ID : 4410091409666

Q.5 दिए गए वाक्यों में से सही वाक्य क्रम का चयन कीजिए।

Ans
✗ 1. लिखाई दुरुस्त तुम अपनी करो।
✗ 2. दुरुस्त अपनी लिखाई तुम करो।
✗ 3. लिखाई तुम अपनी दुरुस्त करो।
✓ 4. तुम अपनी लिखाई दुरुस्त करो।

Question ID : 4410093239l7
Option 1 ID : 4410091261994
Option 2 ID : 4410091261995
Option 3 ID : 4410091261992
Option 4 ID : 4410091261993

Q.6 उपयुक्त विशेषण शब्द से वाक्य पूर्ण करें –
_____केले बीस रूपए के हैं

Ans
✓ 1. दो दर्जन
✗ 2. आधा
✗ 3. एक
✗ 4. सैकड़ों

Question ID : 4410093l7628
Option 1 ID : 4410091236998
Option 2 ID : 4410091237000
Option 3 ID : 4410091236997
Option 4 ID : 4410091236999

QuickSarkari.com | WhatsApp Channel | Telegram: t.me/quick_sarkari

Q.7 'अंधे के आगे रोना,अपना दीदा खोना' लोकोक्ति का सही अर्थ है-

Ans
1. दु:ख सुनाने पर ध्यान न देना
2. मूर्ख और गुणगान का समान आदर
3. अनहोनी होना
4. जब मर गये तो फिर चिंता क्या

Question ID : 4410093l0626
Option 1 ID : 4410091208982
Option 2 ID : 4410091208980
Option 3 ID : 4410091208983
Option 4 ID : 4410091208981

Q.8 निम्नलिखित में से कौन-सा एक पर्याय युग्म अशुद्ध है?

Ans
1. इच्छा – वांछा
2. दुर्बोध – निमित्त
3. सरोज – अम्बुज
4. व्योम – आकाश

Question ID : 4410093O5048
Option 1 ID : 4410091186862
Option 2 ID : 4410091186863
Option 3 ID : 4410091186864
Option 4 ID : 4410091186865

Q.9 'लोमड़ी' का तत्सम शब्द है-

Ans
1. लोमशा
2. लोष्ट
3. लक्ष
4. मंडूक

Question ID : 4410093O5110
Option 1 ID : 4410091187112
Option 2 ID : 4410091187110
Option 3 ID : 4410091187111
Option 4 ID : 4410091187113

Q.10 उपयुक्त कारक चिह्न से वाक्य पूर्ण करें –
ये सब बातें सुनीता ___ ही बताई थी

Ans
1. की
2. ने
3. से
4. में

Question ID : 4410093l7661
Option 1 ID : 4410091237132
Option 2 ID : 4410091237129
Option 3 ID : 4410091237130
Option 4 ID : 4410091237131

QuickSarkari.com | WhatsApp Channel | Telegram: t.me/quick_sarkari

Q.11 निम्नलिखित कालांकित वाक्यांश के लिए विकल्प में से एक शब्द का चयन करें।
भ्रष्टाचार के आरोपों के कारण बाबू को अनुशासनात्मक कार्रवाई की प्रक्रिया के फलस्वरूप पद से नीचे उतरना पड़ा।

Ans
✗ 1. प्रोन्नति
✓ 2. पदावनति
✗ 3. पदोन्नति
✗ 4. पदावधि

Question ID : 4410098417 75
Option 1 ID : 4410093320170
Option 2 ID : 4410093320168
Option 3 ID : 4410093320169
Option 4 ID : 4410093320171

Q.12 'व्याकुल' का पर्यायवाची क्या है?

Ans
✗ 1. शिलाघात
✓ 2. व्यग्र
✗ 3. महिषी
✗ 4. पिशुन

Question ID : 4410093050 35
Option 1 ID : 4410091186810
Option 2 ID : 4410091186813
Option 3 ID : 4410091186811
Option 4 ID : 4410091186812

Q.13 'इमली के पात पर बारात का डेरा' लोकोक्ति का अर्थ है–

Ans
✓ 1. असम्भव बात
✗ 2. गुण के विपरीत नाम
✗ 3. एक दोष के साथ दूसरा दोष भी
✗ 4. सब कुछ निराला है

Question ID : 4410093106 70
Option 1 ID : 4410091209161
Option 2 ID : 4410091209162
Option 3 ID : 4410091209163
Option 4 ID : 4410091209160

Q.14 दिए गए वाक्य के किस भाग में त्रुटि है?
"जिन छात्रों ने परीश्रम किया वे उत्तीर्ण हो गए।"

Ans
✗ 1. जिन छात्रों ने
✓ 2. परीश्रम किया
✗ 3. हो गए
✗ 4. वे उत्तीर्ण

Question ID : 4410093185 22
Option 1 ID : 4410091240381
Option 2 ID : 4410091240382
Option 3 ID : 4410091240384
Option 4 ID : 4410091240383

Q.15 **नीचे दिए गए वाक्य खंडों को सही क्रम में व्यवस्थित करें –**
1.परिवार के साथ
2.के साथ संतुलन
3.परिवार और बच्चों की
4.साध रही हैं
5.वर्तमान में मांएं
6.पेशेवर जिम्मेदारियों

Ans
✗ 1. 246135
✓ 2. 531624
✗ 3. 316245
✗ 4. 562431

Question ID : 4410093118148
Option 1 ID : 4410091239049
Option 2 ID : 4410091239050
Option 3 ID : 4410091239051
Option 4 ID : 4410091239052

Comprehension:

निम्नलिखित गद्यांश को पढ़कर पूछे गए प्रश्नों के उत्तर दें –

भाषा अपने विचारों,आवश्यकताओं की संतुष्टि और दृष्टिकोणों के विनिमय का साधन है। मानव जाति के विभिन्न समूह विभिन्न भाषाएं बोलते हैं,क्योंकि संसार की समस्त भाषाएं एक ही समय में नहीं जन्मीं थी। जिस प्रकार विभिन्न राष्ट्र जन्म लेते हैं,विकसित होते हैं तथा मृत्यु को प्राप्त होते हैं,ठीक ऐसी ही स्थिति भाषाओं की है। वही मनुष्य वास्तव में जीवित है जो बढ़ता है और प्रगति करता है,क्योंकि परिवर्तन जीवन का नियम है। परियों की कथाओं और पौराणिक कथाओं में अद्भुत वीर गीतों और कविताओं में प्रायः उन सुखी राजा और रानियों की कहानी कही जाती है जिसको परमात्मा ने केवल एक पुत्र या पुत्री प्रदान की। ये राजकुमार और राजकुमारियाँ सदैव अपने साथ मोहक सौन्दर्य एवं सुख लेकर आते हैं। इन कहानियों में सर्वाधिक साहसिक कार्य भी, जिनमें किसी दुष्टा परी की भविष्यवाणी के अनुसार किसी भूत-प्रेत का हस्तक्षेप होता है, केवल नायक की सफलता पर बल देने के लिए घटित होते हैं।

SubQuestion No : 16

Q.16 **उपर्युक्त गद्यांश के लिए उचित शीर्षक का चयन करें।**

Ans
✗ 1. कहानियाँ
✗ 2. गीत तथा कथा
✗ 3. राजा और रानी की कहानियाँ
✓ 4. भाषा और उसके तत्त्व

Question ID : 4410093254O4
Option 1 ID : 4410091267929
Option 2 ID : 4410091267931
Option 3 ID : 4410091267930
Option 4 ID : 4410091267928

Comprehension:

निम्नलिखित गद्यांश को पढ़कर पूछे गए प्रश्नों के उत्तर दें –

भाषा अपने विचारों,आवश्यकताओं की संतुष्टि और दृष्टिकोणों के विनिमय का साधन है। मानव जाति के विभिन्न समूह विभिन्न भाषाएं बोलते हैं,क्योंकि संसार की समस्त भाषाएं एक ही समय में नहीं जन्मीं थी। जिस प्रकार विभिन्न राष्ट्र जन्म लेते हैं,विकसित होते हैं तथा मृत्यु को प्राप्त होते हैं,ठीक ऐसी ही स्थिति भाषाओं की है। वही मनुष्य वास्तव में जीवित है जो बढ़ता है और प्रगति करता है,क्योंकि परिवर्तन जीवन का नियम है। परियों की कथाओं और पौराणिक कथाओं में अद्भुत वीर गीतों और कविताओं में प्रायः उन सुखी राजा और रानियों की कहानी कही जाती है जिसको परमात्मा ने केवल एक पुत्र या पुत्री प्रदान की। ये राजकुमार और राजकुमारियाँ सदैव अपने साथ मोहक सौन्दर्य एवं सुख लेकर आते हैं। इन कहानियों में सर्वाधिक साहसिक कार्य भी, जिनमें किसी दुष्टा परी की भविष्यवाणी के अनुसार किसी भूत-प्रेत का हस्तक्षेप होता है, केवल नायक की सफलता पर बल देने के लिए घटित होते हैं।

SubQuestion No : 17

Q.17 **'हस्तक्षेप' का सही अर्थ क्या है?**

Ans
✗ 1. पैर देना
✗ 2. हाथ देना
✓ 3. दखलंदाज़ी
✗ 4. आक्षेप लगाना

Question ID : 4410009325405
Option 1 ID : 4410091267934
Option 2 ID : 4410091267932
Option 3 ID : 4410091267933
Option 4 ID : 4410091267935

Comprehension:

निम्नलिखित गद्यांश को पढ़कर पूछे गए प्रश्नों के उत्तर दें –

भाषा अपने विचारों,आवश्यकताओं की संतुष्टि और दृष्टिकोणों के विनिमय का साधन है। मानव जाति के विभिन्न समूह विभिन्न भाषाएं बोलते हैं,क्योंकि संसार की समस्त भाषाएं एक ही समय में नहीं जन्मीं थी। जिस प्रकार विभिन्न राष्ट्र जन्म लेते हैं,विकसित होते हैं तथा मृत्यु को प्राप्त होते हैं,ठीक ऐसी ही स्थिति भाषाओं की है। वही मनुष्य वास्तव में जीवित है जो बढ़ता है और प्रगति करता है,क्योंकि परिवर्तन जीवन का नियम है। परियों की कथाओं और पौराणिक कथाओं में अद्भुत वीर गीतों और कविताओं में प्रायः उन सुखी राजा और रानियों की कहानी कही जाती है जिसको परमात्मा ने केवल एक पुत्र या पुत्री प्रदान की। ये राजकुमार और राजकुमारियाँ सदैव अपने साथ मोहक सौन्दर्य एवं सुख लेकर आते हैं। इन कहानियों में सर्वाधिक साहसिक कार्य भी, जिनमें किसी दुष्टा परी की भविष्यवाणी के अनुसार किसी भूत-प्रेत का हस्तक्षेप होता है, केवल नायक की सफलता पर बल देने के लिए घटित होते हैं।

SubQuestion No : 18

Q.18 **'विनिमय' का पर्यायवाची क्या है?**

Ans
✗ 1. विनम्रता
✗ 2. शिष्टता
✓ 3. आदान प्रदान
✗ 4. नम्रता

Question ID : 4410009325406
Option 1 ID : 4410091267939
Option 2 ID : 4410091267937
Option 3 ID : 4410091267938
Option 4 ID : 4410091267936

Comprehension:

निम्नलिखित गद्यांश को पढ़कर पूछे गए प्रश्नों के उत्तर दें –

भाषा अपने विचारों,आवश्यकताओं की संतुष्टि और दृष्टिकोणों के विनिमय का साधन है। मानव जाति के विभिन्न समूह विभिन्न भाषाएं बोलते हैं,क्योंकि संसार की समस्त भाषाएं एक ही समय में नहीं जन्मीं थी। जिस प्रकार विभिन्न राष्ट्र जन्म लेते हैं,विकसित होते हैं तथा मृत्यु को प्राप्त होते हैं,ठीक ऐसी ही स्थिति भाषाओं की है। वही मनुष्य वास्तव में जीवित है जो बढ़ता है और प्रगति करता है,क्योंकि परिवर्तन जीवन का नियम है। परियों की कथाओं और पौराणिक कथाओं में अद्भुत वीर गीतों और कविताओं में प्रायः उन सुखी राजा और रानियों की कहानी कही जाती है जिसको परमात्मा ने केवल एक पुत्र या पुत्री प्रदान की। ये राजकुमार और राजकुमारियाँ सदैव अपने साथ मोहक सौन्दर्य एवं सुख लेकर आते हैं। इन कहानियों में सर्वाधिक साहसिक कार्य भी, जिनमें किसी दुष्टा परी की भविष्यवाणी के अनुसार किसी भूत-प्रेत का हस्तक्षेप होता है, केवल नायक की सफलता पर बल देने के लिए घटित होते हैं।

SubQuestion No : 19

Q.19 **'सफलता' का विलोम शब्द चुनिए ।**

Ans
✗ 1. अफलता

✓ 2. विफलता

✗ 3. निहफलता

✗ 4. कूफलता

Question ID : 4410091325407
Option 1 ID : 4410091267941
Option 2 ID : 4410091267943
Option 3 ID : 4410091267942
Option 4 ID : 4410091267940

Comprehension:

निम्नलिखित गद्यांश को पढ़कर पूछे गए प्रश्नों के उत्तर दें –

भाषा अपने विचारों,आवश्यकताओं की संतुष्टि और दृष्टिकोणों के विनिमय का साधन है। मानव जाति के विभिन्न समूह विभिन्न भाषाएं बोलते हैं,क्योंकि संसार की समस्त भाषाएं एक ही समय में नहीं जन्मीं थी। जिस प्रकार विभिन्न राष्ट्र जन्म लेते हैं,विकसित होते हैं तथा मृत्यु को प्राप्त होते हैं,ठीक ऐसी ही स्थिति भाषाओं की है। वही मनुष्य वास्तव में जीवित है जो बढ़ता है और प्रगति करता है,क्योंकि परिवर्तन जीवन का नियम है। परियों की कथाओं और पौराणिक कथाओं में अद्भुत वीर गीतों और कविताओं में प्रायः उन सुखी राजा और रानियों की कहानी कही जाती है जिसको परमात्मा ने केवल एक पुत्र या पुत्री प्रदान की। ये राजकुमार और राजकुमारियाँ सदैव अपने साथ मोहक सौन्दर्य एवं सुख लेकर आते हैं। इन कहानियों में सर्वाधिक साहसिक कार्य भी, जिनमें किसी दुष्टा परी की भविष्यवाणी के अनुसार किसी भूत-प्रेत का हस्तक्षेप होता है, केवल नायक की सफलता पर बल देने के लिए घटित होते हैं।

SubQuestion No : 20

Q.20 **उपर्युक्त गद्यांश का सारांश चुनिए ।**

Ans
✗ 1. संसार की भाषाओं की उत्पत्ति के बारे में जानना।

✗ 2. भाषा की आवश्यकताओं को समझकर हमारे राज्य रानी के बारे में जानना।

✓ 3. भाषाओं की उत्पत्ति के समय को जानना तथा भाषा की विधियों के माध्यम से पौराणिक कथाओं के कथानक को जानना ।

✗ 4. पौराणिक कथाओं का महत्त्व समझना और कथा का उद्धरण देना।

Question ID : 4410091325408
Option 1 ID : 4410091267947
Option 2 ID : 4410091267945
Option 3 ID : 4410091267944
Option 4 ID : 4410091267946

Section : Discipline1

Q.1 **निम्नलिखित में से कौन-सा, बच्चों के उन्मज्जी (emergent) लेखन कौशल का सर्वोत्तम रूप से समर्थन करता है?**

Ans
✗ 1. बच्चों को केवल कहानियाँ पढ़कर सुनाना, लेखन गतिविधियाँ नहीं करवाना

✓ 2. बच्चों को स्वतंत्र रूप से लिखने एवं चित्र बनाने के लिए प्रोत्साहित करना

✗ 3. बच्चों को वर्तनी सूचियाँ (spelling lists) याद कराना

✗ 4. विशिष्ट कॉपी करके अभ्यास करने वाली वर्कशीटों का उपयोग करना

Question ID : 4410091037797
Option 1 ID : 4410094101744
Option 2 ID : 4410094101742
Option 3 ID : 4410094101743
Option 4 ID : 4410094101745

Q.2 विशेष आवश्यकता वाले बच्चों के लिए बाहरी परिवेश को किस प्रकार अनुकूलित किया जा सकता है?

Ans
1. पृथक और विलग क्षेत्र प्रदान करके
2. बाहरी परिवेश तक उनकी पहुँच को प्रतिबंधित करके
3. उनकी आवश्यकताओं और क्षमताओं की उपेक्षा करके
4. अनुकूली उपकरण और सामग्रियाँ समाविष्ट करके

Question ID : 4410099842 97
Option 1 ID : 4410093889614
Option 2 ID : 4410093889617
Option 3 ID : 4410093889616
Option 4 ID : 4410093889615

Q.3 उन गतिविधियों की पहचान कीजिए जो प्रारंभिक बाल्यावस्था में अंकगणितीय तत्परता (arithmetic readiness) का समर्थन करती हैं।

a. वस्तुओं के समूह का उपयोग करके कम या ज़्यादा की संकल्पनाओं को समझना
b. अक्षर लिखना
c. वस्तुओं और आकृतियों से पैटर्न बनाना
d. लंबाई, भार और धारिता की संकल्पनाओं की खोज करना

Ans
1. b, c और d
2. a, b और c
3. a, c और d
4. a, b और d

Question ID : 4410099840 78
Option 1 ID : 4410093888742
Option 2 ID : 4410093888744
Option 3 ID : 4410093888743
Option 4 ID : 4410093888745

Q.4 निम्नलिखित में से कौन-सा प्राकृतिक संसाधन है, जिसका महत्व बच्चों को समझना चाहिए?

Ans
1. काँच
2. जल
3. प्लास्टिक
4. ईंट

Question ID : 4410091037851
Option 1 ID : 4410094101952
Option 2 ID : 4410094101951
Option 3 ID : 4410094101950
Option 4 ID : 4410094101953

Q.5 कौन-सी कक्षा सामग्री, छोटे बच्चों की मूल मापन की समझ का सर्वोत्तम रूप से समर्थन करती है?

Ans
1. केवल शांत रीडिंग कॉर्नर
2. केवल कहानियों वाली पुस्तकें
3. प्लास्टिक के मापने वाले कप एवं रेत
4. लंबे शब्दों वाले फ़्लैशकार्ड

Question ID : 4410091037709
Option 1 ID : 4410094101393
Option 2 ID : 4410094101391
Option 3 ID : 4410094101390
Option 4 ID : 4410094101392

QuickSarkari.com | WhatsApp Channel | Telegram: t.me/quick_sarkari

Q.6 निम्नलिखित मापन अवधारणाओं को, उपयुक्त क्रियाकलापों से सुमेलित कीजिए।

1. वजन ज्ञात करना a. रूलर का उपयोग
2. लंबाई मापना b. मोतियों का हार बनाना
3. प्रतिरूप पहचानना c. तराजू का उपयोग
4. क्षेत्रफल ज्ञात करना d. किसी सतह को टाइलों से कवर करना

Ans
✗ 1. 1–b, 2–a, 3–d, 4–c
✗ 2. 1–d, 2–a, 3–c, 4–b
✗ 3. 1–a, 2–c, 3–b, 4–d
✓ 4. 1–c, 2–a, 3–b, 4–d

Question ID : 4410009984054
Option 1 ID : 4410093888647
Option 2 ID : 4410093888648
Option 3 ID : 4410093888646
Option 4 ID : 4410093888649

Q.7 किसी बच्चे के परिवेश के संदर्भ में वैश्विक पर्यावरण के संबंध में, निम्नलिखित में से कौन-सा कथन सत्य है?

Ans
✗ 1. इसमें केवल प्राकृतिक पर्यावरण शामिल है।
✗ 2. बच्चे का इसके साथ नित्य व्यक्तिगत संपर्क होता है।
✓ 3. यह बहुत दूर है, लेकिन बच्चे को अप्रत्यक्ष रूप से प्रभावित कर सकता है।
✗ 4. यह बच्चे को प्रतिदिन प्रत्यक्ष रूप से प्रभावित करता है।

Question ID : 4410091087443
Option 1 ID : 4410094287306
Option 2 ID : 4410094287305
Option 3 ID : 4410094287304
Option 4 ID : 4410094287303

Q.8 निम्नलिखित में से कौन-सा, स्वच्छ लिखावट विकसित करने में मदद करता है?

Ans
✗ 1. घुमावदार लेखन, गति, दृश्य सामग्री
✗ 2. तेज़ लेखन, मज़बूत पकड़, रंगीन पेन
✗ 3. तिरछे अक्षर, नरम पकड़, विराम चिह्न
✓ 4. आसन, लयबद्ध गति, अक्षर रचना

Question ID : 4410091083383
Option 1 ID : 4410094270613
Option 2 ID : 4410094270611
Option 3 ID : 4410094270614
Option 4 ID : 4410094270612

Q.9 प्रारंभिक बाल्यावस्था गणित शिक्षा में, जोड़-तोड़ (manipulatives) का उपयोग करने का प्राथमिक उद्देश्य क्या होता है?

Ans
✗ 1. पेशीय कौशल विकसित करना
✗ 2. बच्चों को व्यस्त रखना
✓ 3. अमूर्त अवधारणाओं की मूर्त समझ प्रदान करना
✗ 4. भाषा-कौशल सिखाना

Question ID : 4410009984123
Option 1 ID : 4410093888923
Option 2 ID : 4410093888922
Option 3 ID : 4410093888924
Option 4 ID : 4410093888925

Q.10 Which of the following factors of diversity is considered to be a classification system that is used to categorise humans into distinct populations or groups by anatomical features related to body structure or physique?

Ans
✗ 1. Gender
✗ 2. Socio economic status
✗ 3. Ethnicity
✓ 4. Race

Question ID : 4410099846 29
Option 1 ID : 44100938909 43
Option 2 ID : 44100938909 44
Option 3 ID : 44100938909 45
Option 4 ID : 44100938909 42

Q.11 समाजीकरण और अन्तर्क्रिया को बढ़ावा देने के लिए आंतरिक अधिगम परिवेश की व्यवस्था किस प्रकार की जानी चाहिए?

Ans
✗ 1. अलग-अलग, व्यक्तिगत क्षेत्रों में
✗ 2. पंक्तियों और स्तंभों में
✗ 3. एक विशाल, खुले स्थान में
✓ 4. छोटे समूहों के ग्रुप्स में

Question ID : 4410099843 02
Option 1 ID : 44100938896 37
Option 2 ID : 44100938896 34
Option 3 ID : 44100938896 36
Option 4 ID : 44100938896 35

Q.12 दिए गए वाक्यांश के सबसे उपयुक्त अर्थ का चयन करें।

बिल्ली को थैले से बाहर निकालो (Let the cat out of the bag)

Ans
✗ 1. लड़ाई शुरू करना (To start a fight)
✓ 2. अनजाने में कोई गुप्त बात उजागर करना (To reveal a secret unintentionally)
✗ 3. किसी को पलायन करने देना (To let someone escape)
✗ 4. किसी फँसे हुए जानवर को मुक्त करना (To free a trapped animal)

Question ID : 4410099840 19
Option 1 ID : 44100938885 09
Option 2 ID : 44100938885 07
Option 3 ID : 44100938885 08
Option 4 ID : 44100938885 06

Q.13 बच्चों के लिए जोड़ और घटाना सीखने से पहले पैटर्न की अवधारणा को समझना क्यों महत्वपूर्ण है?

Ans
✗ 1. पैटर्न अधिक दिलचस्प होते हैं
✗ 2. दैनिक जीवन में पैटर्न का बहुधा उपयोग किया जाता है
✓ 3. सीखने के पैटर्न संख्याओं के बीच अनुक्रम और संबंधों को पहचानने में सहायता करते हैं
✗ 4. पैटर्न सीखना आसान है

Question ID : 4410099840 95
Option 1 ID : 44100938888 12
Option 2 ID : 44100938888 13
Option 3 ID : 44100938888 11
Option 4 ID : 44100938888 10

Q.14 निम्नलिखित साक्षरता पठन (literacy reading) रणनीतियों का उनके उद्देश्यों से मिलान कीजिए।

रणनीतियां उद्देश्य

A. क्षिप्रगामी (Skimming) 1. विषय-वस्तु के सामान्य विचार शीघ्रता से प्राप्त करना

B. क्रमवीक्षण (Scanning) 2. विशिष्ट सूचना का पता लगाना

C. गहन पठन (Intensive Reading) 3. पाठ को पूर्णतया समझना और उसका विश्लेषण करना

D. विस्तृत पठन (Extensive Reading) 4. पढ़ने का आनंद लेना और भाषा कौशल में सुधार करना

Ans

✗ 1. A–2, B–1, C–4, D–3

✗ 2. A–4, B–3, C–2, D–1

✓ 3. A–1, B–2, C–3, D–4

✗ 4. A–3, B–4, C–1, D–2

Question ID : 4410009983975
Option 1 ID : 4410093888330
Option 2 ID : 4410093888333
Option 3 ID : 4410093888332
Option 4 ID : 4410093888331

Q.15 सक्रिय सहभागिता के सिद्धांत के अनुसार, कौन-सी गतिविधि साक्षरता अधिगम में सक्रिय सहभागिता को बढ़ावा देती है?

Ans

✗ 1. वैयक्तिक पठन बोध वर्कशीट को पूर्ण करना

✓ 2. किसी कहानी के संबंध में एक छोटे-समूह की परिचर्चा में भाग लेना

✗ 3. व्याकरण के नियमों पर शिक्षक का व्याख्यान सुनना

✗ 4. अकेले कोई शैक्षिक वीडियो देखना

Question ID : 4410009983976
Option 1 ID : 4410093888337
Option 2 ID : 4410093888335
Option 3 ID : 4410093888334
Option 4 ID : 4410093888336

Q.16 क्रीड़ा की परिभाषाओं को उनके प्रतिपादकों के साथ सुमेलित कीजिए।

1) आनंदमय, स्वत:स्फूर्त रचनात्मक गतिविधि जिसमें मनुष्य को अपना पूर्णतम अनुभव प्राप्त होता है a) ग्रॉस (Gross)

2) बिना किसी गंभीर आशय के सहज अभ्यास b) मोंटेसरी (Montessori)

3) बहती धारा या बढ़ते वृक्ष की अनवरत गतिविधि के सदृश c) हरलॉक (Hurlock)

4) कोई भी गतिविधि जो आनंद की ओर निर्देशित हो d) रॉस (Ross)

Ans

✗ 1. 1 – d, 2 – c, 3 – b, 4 – a

✗ 2. 1 – c, 2 – a, 3 – d, 4 – b

✓ 3. 1 – d, 2 – a, 3 – b, 4 – c

✗ 4. 1 – a, 2 – b, 3 – c, 4 – d

Question ID : 4410009984285
Option 1 ID : 4410093889569
Option 2 ID : 4410093889568
Option 3 ID : 4410093889567
Option 4 ID : 4410093889566

Q.17 निम्नलिखित में से कौन-सा/से कथन सत्य या असत्य है/हैं?

कथन 1: शब्दों को छोटे-छोटे खंडों में विभक्त करके और खंडित रूप से पढ़ने से मस्तिष्क इन छोटे-छोटे खंडों पर ध्यान केंद्रित कर सकता है।
कथन 2: जब मस्तिष्क छोटे-छोटे खंडों पर ध्यान केंद्रित करता है, तो पूरे पाठ का अर्थ समझने की उसकी क्षमता में वृद्धि होती है।

Ans
1. कथन 1 असत्य है और कथन 2 सत्य है।
2. कथन 1 सत्य है और कथन 2 असत्य है।
3. दोनों कथन सत्य हैं।
4. दोनों कथन असत्य हैं।

Question ID : 4410009983985
Option 1 ID : 4410093888371
Option 2 ID : 4410093888372
Option 3 ID : 4410093888370
Option 4 ID : 4410093888373

Q.18 प्रारंभिक बाल्यावस्था के दौरान, शब्दावली का विकास _____ होता है।

Ans
1. मंद और प्रतिदिन के शब्दों तक सीमित
2. 3 वर्ष की आयु तक पूर्ण
3. 18 माह से 6 वर्ष के बीच द्रुत और नाटकीय
4. केवल स्कूली निर्देशों पर निर्भर

Question ID : 4410091084109
Option 1 ID : 4410094273527
Option 2 ID : 4410094273529
Option 3 ID : 4410094273528
Option 4 ID : 4410094273530

Q.19 गणितीय अधिगम के संदर्भ में, संक्षिप्त नाम E-L-P-S का पूर्ण रूप क्या है?

Ans
1. Experience – Language – Pictures – Symbols (एक्सपीरियंस – लैंग्वेज – पिक्चर – सिंबल)
2. Example – Logic – Practice – Symbols (एग्जाम्प्ल – लॉजिक – प्रैक्टिस – सिंबल)
3. Explore – Learn – Perform – Solve (एक्स्प्लोर – लर्न – परफॉर्म – सॉल्व)
4. Estimation – Learning – Process – Symbols (एस्टिमेशन – लर्निंग – प्रोसेस – सिंबल)

Question ID : 4410091084104
Option 1 ID : 4410094273507
Option 2 ID : 4410094273508
Option 3 ID : 4410094273510
Option 4 ID : 4410094273509

Q.20 निम्नलिखित में से कौन-सी गतिविधियां, प्रारंभिक बाल्यावस्था में मापन कौशल विकसित करने में सहायक होती हैं?

a. विभिन्न वस्तुओं की ऊंचाई की तुलना करना
b. काल्पनिक खेल के रूप में खाना पकाने के दौरान सामग्री को मापना
c. आयतन समझने के लिए पानी से खेलना
d. संगीत सुनना

Ans
1. a, b और d
2. a, c और d
3. a, b और c
4. b, c और d

Question ID : 4410009984060
Option 1 ID : 4410093888673
Option 2 ID : 4410093888672
Option 3 ID : 4410093888670
Option 4 ID : 4410093888671

Section : Discipline2

Q.1 Universal access to integrated child development including ECCE for all young children remains the primary responsibility of the government through _____ (ICDS).

Ans
✗ 1. Integrated Children Developmental Service
✓ 2. Integrated Child Development Service
✗ 3. Integrated Child Developmental Service
✗ 4. Integrated Children Development Service

Question ID : 4410091067172
Option 1 ID : 4410094214175
Option 2 ID : 4410094214172
Option 3 ID : 4410094214173
Option 4 ID : 4410094214174

Q.2 ECCE पाठ्यक्रम का कौन-सा घटक बच्चों के शारीरिक, संज्ञानात्मक और सामाजिक-संवेगात्मक विकास पर केंद्रित होता है?

Ans
✗ 1. मानकीकृत परीक्षा तैयारी
✗ 2. उन्नत साक्षरता कौशल
✗ 3. कठोर शैक्षणिक मूल्यांकन
✓ 4. नाटक खेल और समूह खेलों जैसी गतिविधियों के माध्यम से समग्र विकास

Question ID : 4410009983737
Option 1 ID : 4410093887380
Option 2 ID : 4410093887378
Option 3 ID : 4410093887379
Option 4 ID : 4410093887381

Q.3 How does the knowledge of child development and learning inform a teacher's decisions about the learning environment?

Ans
✗ 1. It provides detailed individual assessments for each child.
✗ 2. It specifies the exact materials and quantities needed for each activity.
✓ 3. It helps in predicting what experiences will likely promote optimal development.
✗ 4. It determines the cultural relevance of the teaching methods.

Question ID : 4410009983634
Option 1 ID : 4410093886969
Option 2 ID : 4410093886967
Option 3 ID : 4410093886966
Option 4 ID : 4410093886968

Q.4 समावेशी शिक्षा के लिए, ECC में निम्नलिखित में से किसे प्राथमिकता दी गई है?

Ans
✗ 1. एकसमान अपेक्षाओं
✓ 2. अनुकूलनीय पाठ्यचर्याओं
✗ 3. शिक्षार्थियों के वर्गीकरण
✗ 4. मानकीकृत आकलनों

Question ID : 4410091098318
Option 1 ID : 4410094330647
Option 2 ID : 4410094330646
Option 3 ID : 4410094330648
Option 4 ID : 4410094330645

Quick Sarkari

Q.5 पाठ्यचर्या की रूपरेखा के अनुसार, निम्नलिखित में से कौन-सी गतिविधि, पूर्व-प्राथमिक (pre-primary) बच्चों के लिए अनुशंसित नहीं है?

Ans
✔ 1. संख्या अनुक्रमों को रटकर याद करना
✘ 2. सरल तुलनाएँ एवं वर्गीकरण करना
✘ 3. आकृतियों एवं सममितियों की पहचान करना
✘ 4. खेल के माध्यम से सीखना

Question ID : 4410099837 71
Option 1 ID : 4410093887515
Option 2 ID : 4410093887516
Option 3 ID : 4410093887517
Option 4 ID : 4410093887514

Q.6 संवेदी (sensorial) विकास से सहसंबंधित गतिविधि की पहचान कीजिए।

Ans
✘ 1. खेलना/साइकिल चलाना (Playing/Cycling)
✘ 2. गीत गाना (Singing songs)
✘ 3. कहानी कथन (Story narration)
✔ 4. विभिन्न गंध वाली वस्तुओं के साथ गतिविधियाँ (Activities with objects varying in smell)

Question ID : 4410099837 72
Option 1 ID : 4410093887521
Option 2 ID : 4410093887520
Option 3 ID : 4410093887519
Option 4 ID : 4410093887518

Q.7 निम्नलिखित में से किस सूत्र का उपयोग, किसी व्यक्ति का IQ मापने के लिए किया जाता है?

Ans
✔ 1. IQ= MA/CA × 100
✘ 2. IQ= MA/CA
✘ 3. IQ= CA/MA
✘ 4. IQ= CA/MA × 100

Question ID : 4410099846 25
Option 1 ID : 4410093890928
Option 2 ID : 4410093890927
Option 3 ID : 4410093890929
Option 4 ID : 4410093890926

Q.8 ECCE पाठ्यचर्या में 'संदर्भ अवयव, _____ संदर्भित करता है।

Ans
✔ 1. बच्चों की मातृभाषा या घरेलू भाषा को
✘ 2. मानकीकरण को बढ़ावा देने के लिए, केवल अंग्रेजी को
✘ 3. टेक्स्ट के बिना, केवल दृश्य संरूप को
✘ 4. वैश्विक प्रदर्शन के लिए विदेशी भाषाओं को

Question ID : 4410091084086
Option 1 ID : 4410094273430
Option 2 ID : 4410094273427
Option 3 ID : 4410094273429
Option 4 ID : 4410094273428

QuickSarkari.com | WhatsApp Channel | Telegram: t.me/quick_sarkari

Q.9 Which of the following helps organise classroom spaces to provoke a child's thinking, interests, and curiosity?

Ans
1. Toy arrangement
2. Learning Corners
3. Seating arrangement
4. Circle time

Question ID : 4410009983658
Option 1 ID : 4410093887063
Option 2 ID : 4410093887064
Option 3 ID : 4410093887062
Option 4 ID : 4410093887065

Q.10 यदि किसी विशेष पाठ्यक्रम या पेशे में प्रवेश पाने के इच्छुक व्यक्तियों के समूह का उस पाठ्यक्रम के लिए आवश्यक कौशल रखने की क्षमता का परीक्षण किया जाना है, तो उनकी _____ में वैयक्तिक भिन्नताओं का भी परीक्षण किया जाना चाहिए।

Ans
1. अभिक्षमता (Aptitude)
2. आत्मधारणा (Self-concept)
3. मूल्य व्यवस्था (Value system)
4. अभिवृत्ति (Attitude)

Question ID : 4410009984572
Option 1 ID : 4410093890714
Option 2 ID : 4410093890717
Option 3 ID : 4410093890716
Option 4 ID : 4410093890715

Q.11 शिक्षकों द्वारा कक्षा में अन्योन्यक्रिया के निम्नलिखित में से कौन-से तरीके सांस्कृतिक-भाषाई रूप से उपयुक्त हैं?

a. वैयक्तिक
b. युग्मों में
c. छोटे समूह
d. UDL-आधारित संपूर्ण कक्षा उपागम
e. पाठ्यपुस्तक पढ़ना

Ans
1. a, b, c, और e
2. b, c, और d
3. a, b, e, और d
4. a, b, c, और d

Question ID : 4410009984505
Option 1 ID : 4410093890447
Option 2 ID : 4410093890446
Option 3 ID : 4410093890448
Option 4 ID : 4410093890449

Q.12 आंगनवाड़ी केंद्र किस योजना के भाग हैं?

Ans
1. एकीकृत बाल विकास सेवा (ICDS)
2. RMSA
3. मध्याह्न भोजन
4. सर्व शिक्षा अभियान

Question ID : 4410091094299
Option 1 ID : 4410094314603
Option 2 ID : 4410094314605
Option 3 ID : 4410094314604
Option 4 ID : 4410094314602

QuickSarkari.com | WhatsApp Channel | Telegram: t.me/quick_sarkari

Q.13 **निम्नलिखित का मिलान कीजिए।**

a. अभिवृत्ति — i. कुशल कार्य करना

b. अभिक्षमता — ii. किसी चीज के बारे में विशेष भावना

c. अभिरुचि — iii. किसी चीज के बारे में विशेष योग्यता/क्षमता

d. मन:प्रेरक कौशल — iv. किसी चीज को पसंद करने के लिए प्रेरक शक्ति

Ans
1. a–iv, b–iii, c–ii, d–i
2. a–ii, b–iv, c–i, d–iii
3. a–iii, b–ii, c–iv, d–i
4. a–ii, b–iii, c–iv, d–i

Question ID : 4410099845l8
Option 1 ID : 4410093890501
Option 2 ID : 4410093890500
Option 3 ID : 4410093890499
Option 4 ID : 4410093890498

Q.14 **निम्नलिखित में से कौन-सा, NPAC-2016 (बच्चों के लिए राष्ट्रीय कार्य योजना-2016) द्वारा निर्धारित एक लक्ष्य नहीं है?**

Ans
1. प्रतिष्ठित संस्थानों में औपचारिक शिक्षा का अधिकार
2. स्वास्थ्य और पोषण का अधिकार
3. उत्तरजीविता का अधिकार
4. शिक्षा और विकास का अधिकार

Question ID : 4410099847O2
Option 1 ID : 4410093891235
Option 2 ID : 4410093891236
Option 3 ID : 4410093891234
Option 4 ID : 4410093891237

Q.15 **नीचे दो कथन दिए गए हैं। उस विकल्प का चयन कीजिए जो सही ढंग से यह बताता है कि इनमें से कौन-सा कथन सत्य है अथवा असत्य।**

A) **पूर्व-प्राथमिक पाठ्यचर्या को बच्चों की सामयिक विकासात्मक आवश्यकताओं पर ध्यान दिए बिना केवल प्राथमिक विद्यालय के लिए उन्हें तैयार करने पर केंद्रित होना चाहिए।**
B) **पाठ्यचर्या लचीली होनी चाहिए और प्रत्येक बच्चे की आवश्यकताओं को पूरा करने के लिए संदर्भ-निर्धारण (contextualisation) की सुविधा होनी चाहिए।**

Ans
1. कथन A और B दोनों सत्य हैं
2. कथन B असत्य है और कथन A सत्य है
3. कथन A असत्य है और कथन B सत्य है
4. कथन A और B दोनों असत्य हैं

Question ID : 4410099836S0
Option 1 ID : 4410093887032
Option 2 ID : 4410093887030
Option 3 ID : 4410093887033
Option 4 ID : 4410093887031

Q.16 नीचे दो कथन दिए गए हैं। उस विकल्प का चयन कीजिए जो निम्नलिखित कथनों के संदर्भ में सही है।

I. ECCE पाठ्यचर्या, संतुलित खेल एवं गतिविधि-आधारित कार्यक्रम है जो बच्चे के भाषाई, बौद्धिक, सामाजिक, संवेगात्मक और शारीरिक विकास हेतु एक उद्दीपक परिवेश प्रदान करती है।
2. ECCE पाठ्यचर्या एक ऐसा कार्यक्रम है, जो बिना किसी प्रश्न के आज्ञाकारिता और सख्त कक्षा अनुशासन के पालन की मांग करता है।

Ans
✔ 1. केवल I सही है
✘ 2. केवल 2 सही है
✘ 3. न तो I और न ही 2 सही है
✘ 4. I और 2 दोनों सही हैं

Question ID : 4410009983702
Option 1 ID : 4410093887241
Option 2 ID : 4410093887238
Option 3 ID : 4410093887240
Option 4 ID : 4410093887239

Q.17 पाठ्यचर्या नियोजन के पारंपरिक उपागम में शिक्षक की विशिष्ट भूमिका क्या है?

Ans
✘ 1. वह सुगमकर्ता जो विद्यार्थियों को स्व-निर्देशित अधिगम में मार्गदर्शन प्रदान करता है।
✔ 2. वह प्राधिकारी जो विद्यार्थियों को पूर्व-निर्धारित विषय-वस्तु प्रदान करता है।
✘ 3. वह मार्गदर्शक जो सृजनात्मक अन्वेषण को प्रोत्साहित करता है।
✘ 4. वह डिजाइनर जो विद्यार्थियों के साथ सहयोगात्मक रूप से पाठ्यचर्या विकसित करता है।

Question ID : 4410009983671
Option 1 ID : 4410093887114
Option 2 ID : 4410093887116
Option 3 ID : 4410093887117
Option 4 ID : 4410093887115

Q.18 भारतीय प्रसंग में, राष्ट्रीय शिक्षा नीति (1986) के अनुसार, प्रारंभिक बाल्यावस्था विशेष रूप से _____ की आयु वर्ग को संदर्भित करता है।

Ans
✔ 1. 0-6 वर्ष
✘ 2. 14-18 वर्ष
✘ 3. 6-14 वर्ष
✘ 4. 1-3 वर्ष

Question ID : 4410091035985
Option 1 ID : 4410094094511
Option 2 ID : 4410094094513
Option 3 ID : 4410094094512
Option 4 ID : 4410094094510

Q.19 निम्नलिखित में से कौन-सी योजना/अधिनियम खतरनाक व्यवसायों को छोड़कर किशोरों को रोजगार की अनुमति देता है?

[A] बाल श्रम संशोधन अधिनियम – 2016
[B] बच्चों के लिए राष्ट्रीय कार्य योजना –2016
[C] किशोर न्याय अधिनियम – 2015
[D] एकीकृत बाल संरक्षण योजना – 2009

Ans
✔ 1. A
✘ 2. B
✘ 3. C
✘ 4. D

Question ID : 4410009984680
Option 1 ID : 4410093891146
Option 2 ID : 4410093891147
Option 3 ID : 4410093891148
Option 4 ID : 4410093891149

Q.20 ECCE संदर्भ में, 'AWW' का पूर्ण रूप क्या है?

Ans
✗ 1. A word with the worker (ए वर्ड विथ द वर्कर)
✓ 2. Anganwadi workers (आंगनवाड़ी वर्कर्स)
✗ 3. Anganwadi welfare (आंगनवाड़ी वेलफेयर)
✗ 4. Anganwadi workshop (आंगनवाड़ी वर्कशॉप)

Question ID : 4410099837 69
Option 1 ID : 4410093887507
Option 2 ID : 4410093887506
Option 3 ID : 4410093887509
Option 4 ID : 4410093887508

Section : Discipline3

Q.1 What type of observation involves recording children's behaviour or activities at regular intervals?

Ans
✓ 1. Time sampling
✗ 2. Event sampling
✗ 3. Naturalistic sampling
✗ 4. Participant observation

Question ID : 4410099838 26
Option 1 ID : 4410093887734
Option 2 ID : 4410093887735
Option 3 ID : 4410093887736
Option 4 ID : 4410093887737

Q.2 IMCI प्रोटोकॉल के अनुसार, कौन-से संगठन उपजिला और जिला स्तर के अस्पतालों में 5 वर्ष से कम आयु के बच्चों को स्वास्थ्य सेवा प्रदान कर रहे हैं?

Ans
✗ 1. DGHS और DGHA
✗ 2. DGFP और DGHA
✗ 3. DGHS और DGAH
✓ 4. DGHS और DGFP

Question ID : 4410099841 66
Option 1 ID : 4410093889095
Option 2 ID : 4410093889096
Option 3 ID : 4410093889097
Option 4 ID : 4410093889094

Q.3 अधिकांश पोषण दिशानिर्देशों के अनुसार, दैनिक कैलोरी सेवन का कितना प्रतिशत प्रोटीन से प्राप्त करने की अनुशंसा की जाती है?

Ans
✗ 1. 20–25%
✗ 2. 30–35%
✓ 3. 10–35%
✗ 4. 40–45%

Question ID : 4410099841 60
Option 1 ID : 4410093889071
Option 2 ID : 4410093889072
Option 3 ID : 4410093889070
Option 4 ID : 4410093889073

QuickSarkari.com | WhatsApp Channel | Telegram: t.me/quick_sarkari

Q.4 IMCI के निम्नलिखित अवयवों का उनकी संबंधित रणनीतियों से मिलान करें:
स्तंभ अ: लाभ स्तंभ ब: रणनीतियाँ
1. कुपोषण से बचाव a. केवल स्तनपान
2. संक्रामक रोगों को कम करता है b. पर्याप्त पोषण
3. स्वस्थ वृद्धि को समर्थन देता है c. नियमित टीकाकरण
4. निर्जलीकरण के जोखिम को कम करता है d. नियमित स्वास्थ्य जांच
5. समग्र बाल स्वास्थ्य को इंगित करता है e. स्वच्छ जल तक पहुंच

Ans
✔ 1. 1–a, 2–c, 3–b, 4–e, 5–d
✘ 2. 1–a, 2–b, 3–c, 4–d, 5–e
✘ 3. 1–b, 2–a, 3–e, 4–c, 5–d
✘ 4. 1–e, 2–d, 3–c, 4–b, 5–a

Question ID : 4410099841177
Option 1 ID : 4410093889140
Option 2 ID : 4410093889138
Option 3 ID : 4410093889139
Option 4 ID : 4410093889141

Q.5 इष्टतम पोषण (optimal nutrition) का मुख्य उद्देश्य क्या है?

Ans
✘ 1. मांसपेशियों में वृद्धि
✘ 2. वजन घटना
✘ 3. ऊर्जा व्यय में वृद्धि
✔ 4. समग्र स्वास्थ्य एवं कल्याण

Question ID : 4410099841159
Option 1 ID : 4410093889067
Option 2 ID : 4410093889066
Option 3 ID : 4410093889069
Option 4 ID : 4410093889068

Q.6 क्षेत्र अवलोकन दौरों (field observation visits) का मुख्य लाभ निम्नलिखित में से कौन-सा है?

Ans
✘ 1. होमवर्क के बोझ को बढ़ाना
✘ 2. कक्षा में शिक्षण के घंटे को कम करना
✘ 3. विद्यार्थी के परस्पर क्रिया को सीमित करना
✔ 4. वास्तविक जीवन के अनुभव प्रदान करना

Question ID : 4410091073387
Option 1 ID : 4410094231006
Option 2 ID : 4410094231004
Option 3 ID : 4410094251355
Option 4 ID : 4410094231005

Q.7 शिशुओं के लिए संतुलित आहार सुनिश्चित करने के लिए, पूरक खाद्य पदार्थों में _____ शामिल होने चाहिए।

Ans
✘ 1. फास्ट फूड और शक्करयुक्त पेय पदार्थ
✘ 2. कार्बोहाइड्रेट से भरपूर खाद्य पदार्थ
✘ 3. साबुत अनाज, शक्करयुक्त स्नैक्स और तले हुए खाद्य पदार्थ
✔ 4. फल, सब्ज़ियाँ, अनाज और प्रोटीन

Question ID : 4410099841184
Option 1 ID : 4410093889168
Option 2 ID : 4410093889166
Option 3 ID : 4410093889169
Option 4 ID : 4410093889167

Q.8 निम्नलिखित में से कौन-सा, क्षेत्र अवलोकन दौरा का नुकसान नहीं है?

Ans
1. बड़े समूह के साथ, अवलोकन और अधिगम कठिन हो जाता है
2. कोई लागत नहीं लगती है
3. बहुत अधिक नियोजन और प्रयास की आवश्यकता होती है
4. समय लगता है

Question ID : 4410091073416
Option 1 ID : 4410094231122
Option 2 ID : 4410094231120
Option 3 ID : 4410094231121
Option 4 ID : 4410094231119

Q.9 कॉलम I में दिए गए अधिनियमों को कॉलम II में दी गई परिभाषाओं से सुमेलित कीजिए।

	कॉलम I: अधिनियम		कॉलम II: परिभाषा
A	किशोर न्याय अधिनियम-2015	P	भारत का संविधान 6 से 14 वर्ष की आयु के सभी बच्चों को निःशुल्क और अनिवार्य शिक्षा प्रदान करता है।
B	POCSO अधिनियम-2012	Q	बाल विवाह पर प्रतिबंध लगाना, पीड़ित बच्चे को संरक्षण देना तथा राहत प्रदान करना तथा ऐसे विवाहों को बढ़ावा देने वालों को दंडित करना।
C	RTE अधिनियम-2009	R	विधि का उल्लघन करने वाले सभी बच्चों के अधिकारों के संरक्षण तथा इन बच्चों के पुनर्वास के लिए विधिक ढांचा।
D	PCM अधिनियम-2006	S	यौन उत्पीड़न और अश्लील चित्रण (pornography) से बच्चों की संरक्षण के लिए विधिक ढांचा।

Ans
1. A- Q; B- S; C- P; D- R
2. A- R; B- S; C- P; D- Q
3. A- S; B- R; C- P; D- Q
4. A- S; B- R; C- Q; D- P

Question ID : 4410099847111
Option 1 ID : 4410093891273
Option 2 ID : 4410093891270
Option 3 ID : 4410093891272
Option 4 ID : 4410093891271

Q.10 Fungal infections can affect which of the following body parts?

Ans
1. Eyes and ears
2. Lungs and liver
3. Heart and brain
4. Nails, groins, skin, and hair

Question ID : 4410099841751
Option 1 ID : 4410093889133
Option 2 ID : 4410093889130
Option 3 ID : 4410093889132
Option 4 ID : 4410093889131

Q.11 बताएं कि निम्नलिखित कथन सत्य हैं अथवा असत्य।
कथन 1: स्तनपान से केवल शिशुओं को लाभ होता है तथा माँ के लिए इसका कोई महत्वपूर्ण स्वास्थ्य लाभ नहीं है।
कथन 2: स्तनपान सुविधाजनक है, क्योंकि शिशु के लिए दूध सदैव सही ताप पर उपलब्ध रहता है।

Ans
✗ 1. दोनों कथन असत्य हैं।
✓ 2. कथन 1 असत्य है और कथन 2 सत्य है।
✗ 3. कथन 1 सत्य है और कथन 2 असत्य है।
✗ 4. दोनों कथन सत्य हैं।

Question ID : 4410099841 90
Option 1 ID : 4410093889193
Option 2 ID : 4410093889191
Option 3 ID : 4410093889192
Option 4 ID : 4410093889190

Q.12 निम्नलिखित में से कौन-सा लर्निंग कार्नर (learning corner) बच्चों को पुस्तकों के साथ जुड़ाव और उनके भागों की पहचान करके पूर्व-साक्षरता कौशल विकसित करने में सहायता करता है?

Ans
✗ 1. राइटिंग कार्नर (Writing corner)
✗ 2. ड्रामैटिक प्ले कार्नर (Dramatic play corner)
✗ 3. क्रिएटिव आर्ट कार्नर (Creative art corner)
✓ 4. रीडिंग और स्टोरी बुक्स कार्नर (Reading and story books corner)

Question ID : 4410091088069
Option 1 ID : 4410094289778
Option 2 ID : 4410094289776
Option 3 ID : 4410094289779
Option 4 ID : 4410094289777

Q.13 भारत सरकार द्वारा शुरू की गई उस नीति की पहचान करें, जो 6 वर्ष से कम आयु के सभी बच्चों के लिए गुणवत्तापूर्ण प्रारंभिक बाल्यावस्था शिक्षा तक सार्वभौमिक पहुंच के लिए प्रतिबद्ध है।

Ans
✓ 1. राष्ट्रीय प्रारंभिक बाल्यावस्था देखभाल एवं शिक्षा नीति, 2013 (National Early Childhood Care and Education Policy, 2013)
✗ 2. बच्चों के लिए राष्ट्रीय कार्य योजना, 2016 (National Plan of Action for Children, 2016)
✗ 3. राष्ट्रीय पोषण मिशन (National Nutrition Mission)
✗ 4. राष्ट्रीय स्वास्थ्य नीति (National Health Policy)

Question ID : 4410099846 68
Option 1 ID : 4410093891098
Option 2 ID : 4410093891099
Option 3 ID : 4410093891100
Option 4 ID : 4410093891101

Q.14 बाल श्रम संशोधन अधिनियम, 2016 के अनुसार, किशोर की परिभाषा _____की आयु के बीच के व्यक्ति के रूप में की गई है।

Ans
✗ 1. 10 से 18 वर्ष
✗ 2. 12 से 21 वर्ष
✓ 3. 14 से 18 वर्ष
✗ 4. 10 से 21 वर्ष

Question ID : 4410099847 00
Option 1 ID : 4410093891227
Option 2 ID : 4410093891229
Option 3 ID : 4410093891226
Option 4 ID : 4410093891228

Q.15 गलत कथन का चयन कीजिए।

A. उच्च-गुणवत्ता वाले प्रीस्कूल का उद्देश्य और लक्ष्य बच्चों को औपचारिक शिक्षा प्रदान करना नहीं है।
B. सभी माता-पिता, जो अपने बच्चों को ECCE केंद्रों या प्रीस्कूलों में भेजते हैं, ECCE के उद्देश्य और निहितार्थ के संबंध में समान विचार रखते हैं।
C. निम्न-आय वाले परिवारों के माता-पिता सोचते हैं कि 6 वर्ष से कम आयु के बच्चों के लिए ECCE आवश्यक नहीं है।
D. राष्ट्रीय प्रारंभिक बाल्यावस्था देखभाल एवं शिक्षा नीति यह मानती है कि बच्चों की देखभाल उनके पारिवारिक परिवेश में सबसे अच्छी तरह से होती है, इसलिए बच्चों की देखभाल के लिए परिवार की क्षमताओं को सुदृढ़ करना आवश्यक है।

Ans
✔ 1. B
✘ 2. D
✘ 3. C
✘ 4. A

Question ID : 4410099846l4
Option 1 ID : 4410093890884
Option 2 ID : 4410093890883
Option 3 ID : 4410093890885
Option 4 ID : 4410093890882

Q.16 2 से 5 वर्ष की आयु के बच्चे को अतिसार और कुछ निर्जलीकरण की समस्या है। उसके लिए क्या किया जाना अनुशंसित है?

Ans
✘ 1. IV तरल पदार्थ देना शुरू करना
✘ 2. अतिसार रोधी दवा देना
✔ 3. ओरल रिहाइड्रेशन सॉल्यूशन और जिंक संपूरक देना
✘ 4. एंटीबायोटिक्स देना

Question ID : 4410099841l1
Option 1 ID : 4410093889114
Option 2 ID : 4410093889117
Option 3 ID : 4410093889115
Option 4 ID : 4410093889116

Q.17 _____ बृहत् पोषक तत्व हैं।

Ans
✔ 1. कार्बोहाइड्रेट, वसा, प्रोटीन और तेल
✘ 2. फाइबर और जल
✘ 3. शर्करा और लवण
✘ 4. विटामिन और खनिज

Question ID : 4410099841l38
Option 1 ID : 4410093888983
Option 2 ID : 4410093888984
Option 3 ID : 4410093888985
Option 4 ID : 4410093888982

Q.18 HDI (मानव विकास सूचकांक), जो किसी राष्ट्र की प्रगति को मापता है, में महत्वपूर्ण निर्धारक विशेषताएँ (determinants characterising) होती हैं। उस निर्धारक की पहचान कीजिए , जो HDI को मापने में योगदान नहीं देता है।

Ans
✔ 1. भौगोलिक कारक
✘ 2. साक्षरता कारक
✘ 3. दीर्घायु
✘ 4. शिशु मृत्यु दर

Question ID : 4410099846l98
Option 1 ID : 4410093891219
Option 2 ID : 4410093891218
Option 3 ID : 4410093891220
Option 4 ID : 4410093891221

Q.19 बच्चों के, ध्वनि उत्सर्जित करने वाले खिलौनों के संबंध में माता-पिता के लिए निहित अनुशंसा क्या है?

Ans
1. बेहतर संलग्नता के लिए वॉल्यूम बढ़ाना।
2. खिलौनों के ध्वनि स्तर की निगरानी एवं नियंत्रण करना।
3. केवल ध्वनि रहित खिलौने खरीदना।
4. सुनिश्चित करना कि ध्वनि सदैव 90 डेसिबल से अधिक हो।

Question ID : 4410009984207
Option 1 ID : 4410093889261
Option 2 ID : 4410093889259
Option 3 ID : 4410093889260
Option 4 ID : 4410093889258

Q.20 प्रारंभिक बाल्यावस्था में, सतत मूल्यांकन मुख्यत: निम्नलिखित में से किन माध्यमों से किया जाना चाहिए?

Ans
1. क्रियाकलाप के दौरान बच्चे के व्यवहार के अवलोकन
2. अंतिम परीक्षाओं
3. वार्षिक प्रगति रिपोर्ट
4. अभिभावक के साथ मौखिक साक्षात्कार

Question ID : 4410091088077
Option 1 ID : 4410094289808
Option 2 ID : 4410094289809
Option 3 ID : 4410094289811
Option 4 ID : 4410094289810

Section : Discipline4

Q.1 दैनिक योजना में, निम्नलिखित में से किसका संतुलन प्रतिबिंबित होना चाहिए?

A. सक्रिय और शांत क्रियाकलाप
B. बच्चों द्वारा और शिक्षकों द्वारा शुरू किए गए क्रियाकलाप
C. इनडोर और आउटडोर क्रियाकलाप
D. बृहद समूह के क्रियाकलाप

Ans
1. केवल A, B और C
2. केवल C
3. A, B, C और D, सभी
4. केवल B और C

Question ID : 4410009983715
Option 1 ID : 4410093887291
Option 2 ID : 4410093887293
Option 3 ID : 4410093887290
Option 4 ID : 4410093887292

Q.2 प्री-स्कूल कार्यक्रम आयोजन _____ को समझने से शुरू होता है।

Ans
1. माता-पिता की आय के स्तर
2. सरकारी नीतियों
3. बच्चों की विकासात्मक आवश्यकताओं
4. शिक्षक की प्राथमिकताओं

Question ID : 4410091100370
Option 1 ID : 4410094338841
Option 2 ID : 4410094338840
Option 3 ID : 4410094338839
Option 4 ID : 4410094338838

QuickSarkari.com | WhatsApp Channel | Telegram: t.me/quick_sarkari

Q.3 शैशव काल के दौरान मस्तिष्क का वजन भी तेजी से बढ़ता है; दूसरे वर्ष के अंत तक, मस्तिष्क अपने वयस्क वजन के _____% तक पहुंच जाता है।

Ans
1. 70
2. 72
3. 80
4. 75

Question ID : 4410009984474
Option 1 ID : 4410093890323
Option 2 ID : 4410093890324
Option 3 ID : 4410093890322
Option 4 ID : 4410093890325

Q.4 बच्चे _____ होते हैं। वे प्रत्येक चीज़ को अपने दृष्टिकोण से देखते हैं।

Ans
1. आत्मकेंद्रित (self-centred)
2. स्वार्थी (selfish)
3. ऊर्जावान (energetic)
4. अनुकरणकर्ता (imitators)

Question ID : 4410009984368
Option 1 ID : 4410093889901
Option 2 ID : 4410093889900
Option 3 ID : 4410093889899
Option 4 ID : 4410093889898

Q.5 बच्चों के ईष्टतम विकास हेतु आवश्यक सहायक भावात्मक परिवेश के सृजन का उत्तरदायित्व किसका माना जाता है?

Ans
1. बच्चों को खेलने और अधिगम के लिए खेल उपकरण और पुस्तकालय की पुस्तकें
2. योग्य शिक्षक
3. सहयोगी माता-पिता और समुदाय
4. साक्षर माता-पिता और समृद्ध समुदाय

Question ID : 4410009984356
Option 1 ID : 4410093889851
Option 2 ID : 4410093889853
Option 3 ID : 4410093889852
Option 4 ID : 4410093889850

Q.6 स्वच्छंद क्रीड़ा (Free play) मुख्यतः _____ पर केंद्रित है।

Ans
1. एक-दूसरे के विरुद्ध खेलने
2. जीतने
3. आनंद
4. शारीरिक विकास

Question ID : 4410009983944
Option 1 ID : 4410093888207
Option 2 ID : 4410093888206
Option 3 ID : 4410093888209
Option 4 ID : 4410093888208

QuickSarkari.com | WhatsApp Channel | Telegram: t.me/quick_sarkari

Q.7 'सृजनात्मक एवं सौंदर्यात्मक सराहना के विकास (development of creative and aesthetic appreciation)' के अर्थ की पहचान करें।

Ans
1. अभिभावकों के साथ साझेदारी में कार्य करके उन्हें विद्यालय गतिविधियों में शामिल करना
2. विभिन्न कला रूपों में सहभागिता, नृत्य, नाटक और संगीत के प्रति अभिव्यक्ति और सराहना
3. स्पोर्ट्स और गेम्स में भाग लेने का कौशल
4. जीवन को समझना और उसकी सराहना करने के कौशल का विकास

Question ID : 4410009984329
Option 1 ID : 4410093889745
Option 2 ID : 4410093889742
Option 3 ID : 4410093889743
Option 4 ID : 4410093889744

Q.8 प्रारंभिक बाल्यावस्था शिक्षा में खेल सामग्री के उपयोग का प्राथमिक उद्देश्य क्या है?

Ans
1. मनोरंजक गतिविधियों के माध्यम से विविध अनुभव प्रदान करना
2. बच्चों को प्रतियोगी परीक्षाओं के लिए तैयार करना
3. शिक्षकों की आवश्यकता को कम करना
4. बच्चों को शांत रखना

Question ID : 4410091088121
Option 1 ID : 4410094289987
Option 2 ID : 4410094289984
Option 3 ID : 4410094289986
Option 4 ID : 4410094289985

Q.9 निम्नलिखित में से किसे, ECCE केंद्र की आय माना जा सकता है?

Ans
1. शैक्षिक संसाधनों पर खर्च की गई राशि
2. पड़ोसी स्कूल द्वारा दान किया गया फर्नीचर
3. सरकार द्वारा प्राप्त सहायता अनुदान
4. ECCE केंद्र के प्रशासन और प्रबंधन पर खर्च की गई मुद्रा

Question ID : 4410009983738
Option 1 ID : 4410093887384
Option 2 ID : 4410093887382
Option 3 ID : 4410093887383
Option 4 ID : 4410093887385

Q.10 शिक्षकों को शिक्षणशास्त्रीय दृष्टिकोण में सुधार के लिए उपाय कब तैयार करने चाहिए?

Ans
1. नियमित रूप से (Regularly)
2. बहुत कम बार (Rarely)
3. कभी नहीं (Never)
4. यदा-कदा (Occasionally)

Question ID : 4410009983900
Option 1 ID : 4410093888030
Option 2 ID : 4410093888032
Option 3 ID : 4410093888033
Option 4 ID : 4410093888031

Q.11 Which of the following statements is/are true/false?

Statement 1: Nutrition is important for the building and repair of body tissues such as muscles and organs.
Statement 2: Poor nutrition can lead to weakened immunity and increased susceptibility to infections.

Ans
1. Statement 1 is true, and statement 2 is false
2. Both the statements are true
3. Statement 1 is false, and statement 2 is true
4. Both the statements are false

Question ID : 4410009984143
Option 1 ID : 4410093889004
Option 2 ID : 4410093889002
Option 3 ID : 4410093889005
Option 4 ID : 4410093889003

Q.12 "बजट, व्यय का पूर्वानुमान लगाने और संप्राप्ति को प्राक्कलित करने में सहायता करते हैं, जैसे कि लक्षित व्यय के लिए धन कहाँ से आएगा।" इस कथन को ध्यान में रखते हुए, किसी विशेष वर्ष के लिए बजट के संबंध में निम्नलिखित में से कौन-सा कथन सत्य नहीं है?

Ans
1. यह प्रत्येक गतिविधि के लिए व्यय आवंटित करने में सहायता करता है।
2. यह आपातस्थितियों के लिए योजना बनाने में सहायता करता है।
3. यह पिछले पाँच वर्षों के व्ययों के आंकड़े प्रदान करता है।
4. यह वर्ष के लिए गतिविधियों की संख्या की योजना बनाने में सहायता करता है।

Question ID : 4410009983660
Option 1 ID : 4410093887072
Option 2 ID : 4410093887071
Option 3 ID : 4410093887073
Option 4 ID : 4410093887070

Q.13 रेडियो का उपयोग लंबे समय तक शिक्षण-अधिगम सामग्री के रूप में किया जाता था। भारत में, पहला रेडियो स्टेशन वर्ष _____ में _____ और _____ शहरों में स्थापित किया गया था।

Ans
1. 1927; कलकत्ता; बॉम्बे
2. 1938; दिल्ली; मद्रास
3. 1921; मद्रास; कलकत्ता
4. 1936; दिल्ली; बॉम्बे

Question ID : 4410009983932
Option 1 ID : 4410093888159
Option 2 ID : 4410093888161
Option 3 ID : 4410093888158
Option 4 ID : 4410093888160

Q.14 बड़े होते हुए बच्चों के आत्मविश्वास को बढ़ाने में वयस्कों द्वारा सहायता कैसे की जा सकती है?

Ans
1. बच्चे के सामर्थ्य और कमज़ोरियों को स्वीकार करके तथा उसे बेहतर बनने में सहायता करके।
2. बच्चे को कक्षा में प्रथम स्थान प्राप्त करने के लिए प्रेरित करके।
3. बच्चे की तुलना दूसरों से करके और उनकी कमज़ोरियों पर ध्यान दिलाकर।
4. बच्चे को सजा देकर और ऊंचे लक्ष्य निर्धारित करने में सहायता करके।

Question ID : 4410009984384
Option 1 ID : 4410093889964
Option 2 ID : 4410093889963
Option 3 ID : 4410093889962
Option 4 ID : 4410093889965

Q.15 अनुदेशन (instruction) के दौरान अस्थायी सहायता, संरचना और मार्गदर्शन प्रदान करने की प्रक्रिया को क्या कहते हैं?

Ans
1. उत्तरदायित्व का क्रमिक निर्मोचन (Graduated Release of Responsibility)
2. ढांचा (Scaffolding)
3. अनुबोधन (Prompting)
4. विभेदी अनुदेशन (Differentiated Instruction)

Question ID : 4410009983647
Option 1 ID : 4410093887019
Option 2 ID : 4410093887020
Option 3 ID : 4410093887021
Option 4 ID : 4410093887018

Q.16 पारंपरिक भारतीय समाज में, प्रारंभिक बाल्यावस्था देखभाल और मूल्य मुख्यतः कौन प्रदान करता है?

Ans
1. संयुक्त परिवार
2. निजी विद्यालय
3. दिवस देखभाल केंद्र
4. सरकारी संस्थान

Question ID : 4410091083980
Option 1 ID : 4410094273003
Option 2 ID : 4410094273001
Option 3 ID : 4410094273002
Option 4 ID : 4410094273004

Q.17 स्तंभ A के शब्दों को स्तंभ B के संगत विवरणों से सुमेलित करें:
स्तंभ A: शब्द
प्रारंभिक बाल्यावस्था शिक्षक या पेशेवर
शिक्षक
देखभालकर्ता
कर्मचारी
स्तंभ B: विवरण
A) उन वयस्कों को संदर्भित करता है जो संरचित परिवेश में छोटे बच्चों को शिक्षित और देखभाल करते हैं
B) इसमें कक्षा के बाहर प्रारंभिक बाल्यावस्था शिक्षा कार्यक्रम में कार्यरत कर्मचारी शामिल हैं
C) उन वयस्कों को संदर्भित करता है जो छोटे बच्चों की प्रत्यक्ष देखभाल और देखरेख करते हैं
D) शैक्षिक परिवेश में छोटे बच्चों को निर्देश और मार्गदर्शन देने वाले व्यक्तियों के लिए उपयोग किया जाता है

Ans
1. I–A, 2–D, 3–C, 4–B
2. I–B, 2–A, 3–D, 4–C
3. I–C, 2–A, 3–D 4–B
4. I–D, 2–C, 3–B, 4–A

Question ID : 4410009984133
Option 1 ID : 4410093888963
Option 2 ID : 4410093888964
Option 3 ID : 4410093888965
Option 4 ID : 4410093888962

Q.18 सह-रचना (co-construction) किससे निकटता से संबन्धित है?

Ans
1. बच्चे कैसे बढ़ते हैं
2. बच्चे कैसे खेलते हैं
3. बच्चे कैसे सहयोग करते हैं
4. बच्चे कैसे सीखते हैं

Question ID : 4410009983880
Option 1 ID : 4410093887953
Option 2 ID : 4410093887952
Option 3 ID : 4410093887951
Option 4 ID : 4410093887950

Q.19 सह-रचनात्मक (co-constructive) अधिगम सुनिश्चित करने के लिए माता-पिता को अपने 3 से 6 वर्ष के बच्चों के साथ प्रतिदिन खेलने के लिए न्यूनतम कितना समय निर्धारित करना चाहिए?

Ans
1. 1-2 घंटे
2. केवल सप्ताहांत पर
3. 10-15 मिनट
4. 30 मिनट से 1 घंटे तक

Question ID : 4410099838884
Option 1 ID : 4410093887966
Option 2 ID : 4410093887967
Option 3 ID : 4410093887969
Option 4 ID : 4410093887968

Q.20 प्रसिद्ध व्यक्तित्वों द्वारा कथित निम्नलिखित विश्रांति तकनीकों के अर्थ और अवधारणा को सुमेलित कीजिए।

A	अनुभवातीत-चिंतन (Transcendental Meditation)	i	आत्म-अवलोकन के माध्यम से आत्म-परिवर्तन की तकनी
B	सुदर्शन क्रिया (Sudarshan Kriya)	ii	हमारे मन को जीवन की स्तर से हमारे अस्तित्व की गहराई लिए मंत्र की पुनरावृत्ति
C	विपश्यना (Vipassana)	iii	अद्वितीय और शक्तिशाली श्वसन तकनीक

Ans
1. A – iii, B – ii, C – i
2. A – iii, B – i, C – ii
3. A – ii, B – iii, C – i
4. A – i, B – ii, C – iii

Question ID : 4410099984307
Option 1 ID : 4410093889657
Option 2 ID : 4410093889654
Option 3 ID : 4410093889655
Option 4 ID : 4410093889656

Section : Discipline5

Q.1 _____ is the main cause for learning disability.

Ans
1. Biological factors
2. Psychological factors
3. Behavioural factors
4. Neurological dysfunction

Question ID : 4410099984783
Option 1 ID : 4410093891558
Option 2 ID : 4410093891561
Option 3 ID : 4410093891560
Option 4 ID : 4410093891559

Q.2 शिशुओं को झुनझुने और ऐसे अन्य खिलौने दिए जाते हैं ताकि _____।

Ans
1. उनमें समग्र पेशीय कौशल विकसित हो
2. उनमें सूक्ष्म पेशीय कौशल विकसित हो
3. उनमें रंगों के प्रति संवेदनशीलता विकसित हो
4. वे उनसे खेलें

Question ID : 4410099984536
Option 1 ID : 4410093890572
Option 2 ID : 4410093890573
Option 3 ID : 4410093890571
Option 4 ID : 4410093890570

QuickSarkari.com | WhatsApp Channel | Telegram: t.me/quick_sarkari

Q.3 अनुभवों के प्रति प्रतिक्रिया में मस्तिष्क की परिवर्तन करने की क्षमता _____।

Ans
✔ 1. आयु के साथ घटती है
✘ 2. जीवन भर समान रहती है
✘ 3. आयु के साथ बढ़ती है
✘ 4. आयु से संबंधित नहीं होती

Question ID : 4410099845555
Option 1 ID : 4410093890646
Option 2 ID : 4410093890648
Option 3 ID : 4410093890647
Option 4 ID : 4410093890649

Q.4 Children master the use of their arms before their hands and they learn to control their fingers. This pattern is observed during development in children. This feature is referred to as:

Ans
✘ 1. Development as a product of growth and maturation
✘ 2. Cephalo–caudal sequence of development
✔ 3. Near to far sequence of development
✘ 4. Continuous development

Question ID : 4410099844831
Option 1 ID : 4410093890361
Option 2 ID : 4410093890359
Option 3 ID : 4410093890358
Option 4 ID : 4410093890360

Q.5 The ability to understand that even when outer appearances change the physical properties remain the same is called _____.

Ans
✘ 1. egocentrism
✘ 2. animistic thinking
✔ 3. conservation
✘ 4. reversibility

Question ID : 4410099845191
Option 1 ID : 4410093890505
Option 2 ID : 4410093890502
Option 3 ID : 4410093890504
Option 4 ID : 4410093890503

Q.6 NCF 2005 के अनुसार, कक्षाओं में भेदभावपूर्ण व्यवहार _____ होना चाहिए।

Ans
✘ 1. केवल स्कूल के प्रधानाचार्यों द्वारा नियंत्रित
✔ 2. जानबूझकर टाला या कम किया गया
✘ 3. प्रतिस्पर्धा बढ़ाने के लिए प्रोत्साहित किया गया
✘ 4. महत्वहीन मानकर अनदेखा किया गया

Question ID : 4410091088092
Option 1 ID : 4410094289871
Option 2 ID : 4410094289868
Option 3 ID : 4410094289870
Option 4 ID : 4410094289869

Quick Sarkari

Q.7 किसी नवजात शिशु की लगभग सभी मस्तिष्क कोशिकाएं, किसी वयस्क की मस्तिष्क कोशिकाओं के समान होती हैं, फिर भी शिशु, वयस्क की भांति व्यवहार क्यों नहीं करता है?

Ans
✗ 1. पोषक तत्वों और ऑक्सीजन की आपूर्ति कम होती है।
✓ 2. मस्तिष्क कोशिकाओं के बीच संयोजन कम होते हैं।
✗ 3. मस्तिष्क का आकार छोटा होता है।
✗ 4. मस्तिष्क कोशिकाओं में ऊर्जा कम होती है।

Question ID : 4410009984559
Option 1 ID : 4410093890665
Option 2 ID : 4410093890663
Option 3 ID : 4410093890662
Option 4 ID : 4410093890664

Q.8 Choose the correct statements related to learning in children from the list given below.

1. Learning is imitation and practise.
2. Learning is reading and memorising.
3. Learning is inborn and spontaneous.
4. Learning is dependent on the environmental inputs.

Ans
✗ 1. 2 and 3
✗ 2. 1 and 2
✗ 3. 3 and 4
✓ 4. 1 and 4

Question ID : 4410009984492
Option 1 ID : 4410093890395
Option 2 ID : 4410093890397
Option 3 ID : 4410093890396
Option 4 ID : 4410093890394

Q.9 जब 5–6 वर्ष के बच्चे पूर्व-प्राथमिक वर्षों की ओर बढ़ते हैं, तो उनके लिए किस बात पर बल दिया जाता है?

Ans
✓ 1. स्कूल रेडिनेस कौशल (School readiness skills)
✗ 2. मोबाइल आधारित ऐप्स (Mobile-based apps)
✗ 3. परीक्षा तैयारी (Exam preparation)
✗ 4. ऑनलाइन वर्कशीट (Online worksheets)

Question ID : 4410091083988
Option 1 ID : 4410094273030
Option 2 ID : 4410094273032
Option 3 ID : 4410094273029
Option 4 ID : 4410094273031

Q.10 स्कूल में, शिक्षक अधिगम अक्षमता वाले बच्चे की पहचान किस प्रकार कर सकते हैं?

Ans
✓ 1. अवलोकन और मानकीकृत नैदानिक परीक्षणों के माध्यम से
✗ 2. माता-पिता के साथ बातचीत करके
✗ 3. शारीरिक मूल्यांकन से
✗ 4. व्यवहारिक परिवर्तनों से

Question ID : 4410009984784
Option 1 ID : 4410093891564
Option 2 ID : 4410093891562
Option 3 ID : 4410093891565
Option 4 ID : 4410093891563

Q.11 Which among the following are examples of fine motor skills?

1. Turning pages of a book
2. Skills involving large muscles
3. Skills involving eye hand coordination
4. Crawling

Ans
✗ 1. 1 and 4
✗ 2. 2 and 3
✓ 3. 1 and 3
✗ 4. 2 and 4

Question ID : 4410099845l7
Option 1 ID : 4410093890496
Option 2 ID : 4410093890497
Option 3 ID : 4410093890494
Option 4 ID : 4410093890495

Q.12 What is known as multiple disabilities?

Ans
✗ 1. Chronic disorders
✓ 2. Existence of more than one disability at a time
✗ 3. Neurological disorders
✗ 4. Impaired movement control in hands and legs

Question ID : 4410099847l5
Option 1 ID : 4410093891406
Option 2 ID : 4410093891408
Option 3 ID : 4410093891409
Option 4 ID : 4410093891407

Q.13 Which of the following is NOT a characteristic of special education?

Ans
✗ 1. Highly individualised based on disability
✓ 2. Meant only for slow learners
✗ 3. Goal directed
✗ 4. Intensive in nature

Question ID : 4410099847l3
Option 1 ID : 4410093891359
Option 2 ID : 4410093891361
Option 3 ID : 4410093891360
Option 4 ID : 4410093891358

Q.14 माता-पिता के साथ सार्थक और प्रभावी संप्रेषण की सबसे उपयुक्त कार्यनीति कौन-सी है?

Ans
✗ 1. स्कूल नोटिस बोर्ड (school notice board)
✗ 2. परिवहन कार्मिक (transport personnel)
✓ 3. गृह भ्रमण (home visits)
✗ 4. छात्र (pupils)

Question ID : 4410099843l6
Option 1 ID : 4410093889871
Option 2 ID : 4410093889873
Option 3 ID : 4410093889870
Option 4 ID : 4410093889872

QuickSarkari.com | WhatsApp Channel | Telegram: t.me/quick_sarkari

Q.15 बच्चों में तंत्रिकीय दोष का मुख्य कारण क्या है?

Ans
✗ 1. मानसिक बिमारी
✗ 2. बच्चे के जन्म के दौरान चोट
✗ 3. व्यवहारवादी शिथिलता
✓ 4. केंद्रीय तंत्रिका तंत्र के विकार

Question ID : 4410099847 90
Option 1 ID : 4410093891587
Option 2 ID : 4410093891589
Option 3 ID : 4410093891588
Option 4 ID : 4410093891586

Q.16 _____. मस्तिष्क की संरचनात्मक और कार्यात्मक इकाई होती है।

Ans
✗ 1. लाल रक्त कोशिका
✓ 2. तंत्रिकोशिका
✗ 3. वृक्काणु
✗ 4. श्वेत रक्त कोशिका

Question ID : 4410099845 96
Option 1 ID : 4410093890810
Option 2 ID : 4410093890813
Option 3 ID : 4410093890812
Option 4 ID : 4410093890811

Q.17 NASDTEC का पूर्ण रूप क्या है?

Ans
✗ 1. National Assessment of State Directors of Teacher Education and Certification (नेशनल असेसमेंट ऑफ स्टेट डायरेक्टर्स ऑफ टीचर एजुकेशन एंड सर्टिफिकेशन)
✗ 2. National Accreditation of State Directors of Teacher Education and Certification (नेशनल एक्क्रेडीटेशन ऑफ स्टेट डायरेक्टर्स ऑफ टीचर एजुकेशन एंड सर्टिफिकेशन)
✓ 3. National Association of State Directors of Teacher Education and Certification (नेशनल एसोसिएशन ऑफ स्टेट डायरेक्टर्स ऑफ टीचर एजुकेशन एंड सर्टिफिकेशन)
✗ 4. National Association of State Directors of Teacher Education and Course (नेशनल एसोसिएशन ऑफ स्टेट डायरेक्टर्स ऑफ टीचर एजुकेशन एंड कोर्स)

Question ID : 4410091153454
Option 1 ID : 4410094548655
Option 2 ID : 4410094548654
Option 3 ID : 4410094548653
Option 4 ID : 4410094548656

Q.18 जिन बच्चों ने तत्परता कौशल विकसित किए बिना औपचारिक स्कूल शुरू कर दिया है, _____।

Ans
✗ 1. वे ECCE केंद्र में बहुत अधिक अभिरुचि दर्शाएँगे
✗ 2. वे सबसे अच्छे शिक्षार्थी हैं क्योंकि वे नई चीजें सीखने के लिए केंद्र में आते हैं
✓ 3. उनकी भविष्य की शैक्षणिक और सामाजिक सफलता के 'जोखिम' पर होने की पहचान की गई है
✗ 4. वे अधिगम क्रियाकलापों में बेहतर प्रदर्शन करने की संभावना रखते हैं

Question ID : 4410099843 69
Option 1 ID : 4410093889904
Option 2 ID : 4410093889902
Option 3 ID : 4410093889905
Option 4 ID : 4410093889903

Q.19 परिधीय तंत्रिका तंत्र में _____।

Ans
1. कपाल और मेरू तंत्रिकाएं होती हैं
2. मेरु रज्जु होता है
3. केवल मेरु तंत्रिकाएं होती हैं
4. मस्तिष्क होता है

Question ID : 4410099845 95
Option 1 ID : 4410093890807
Option 2 ID : 4410093890809
Option 3 ID : 4410093890808
Option 4 ID : 4410093890806

Q.20 स्कूल में, शिक्षक श्रवण बाधित बच्चे की पहचान किस प्रकार कर सकते हैं?

Ans
1. प्रश्नावली से
2. केस स्टडी और अवलोकन से
3. साक्षात्कार से
4. पठन परीक्षण देकर

Question ID : 4410099847 54
Option 1 ID : 4410093891443
Option 2 ID : 4410093891444
Option 3 ID : 4410093891442
Option 4 ID : 4410093891445

QuickSarkari.com | WhatsApp Channel | Telegram: t.me/quick_sarkari

Quick Sarkari

Thank you for studying with QuickSarkari!

Get the latest Sarkari Naukri notifications, admit cards, results, answer keys and free previous-year papers first - follow us on WhatsApp and Telegram.

Visit www.quicksarkari.com

Join our WhatsApp Channel

https://whatsapp.com/channel/0029VaxxbrREquiPoXTWM229

Join our Telegram Channel

https://t.me/quick_sarkari

Share this PDF with your friends preparing for DSSSB exams.