Quick Sarkari

DSSSB PREVIOUS YEAR PAPER WITH ANSWER KEY

DSSSB Assistant Teacher (Nursery)

12 August 2025 · Shift 2

डीएसएसएसबी सहायक अध्यापक (नर्सरी) – 12 अगस्त 2025, शिफ्ट 2 का प्रश्न पत्र, उत्तर कुंजी सहित

200	120 min	1 / −0.25	EN + HI
Questions / प्रश्न	Duration / समय	Marks per Q / अंक	Language / भाषा

Sections: General intelligence and Reasoning Ability, General Awareness, Arithmetical and Numerical Ability, English Language and Comprehension, Hindi Language and Comprehension, Assistant Teacher (Nursery)

INSIDE THIS PDF / इस PDF में

Question Paper in English + Hindi with Answer Key (correct option marked in green) + answer table — Page 2–46
प्रश्न पत्र अंग्रेज़ी + हिंदी में, उत्तर कुंजी सहित (सही विकल्प हरे रंग में) + उत्तर तालिका

Official DSSSB Response Sheet with Answer Key (correct option ticked in green) — Page 47–109
आधिकारिक DSSSB रिस्पॉन्स शीट, उत्तर कुंजी सहित (सही विकल्प हरे टिक से)

HOW TO USE THIS PAPER / इस पेपर का उपयोग कैसे करें

1. Attempt the paper first as a timed online mock test (link below).
   पहले नीचे दिए लिंक से इसे टाइमर के साथ ऑनलाइन मॉक टेस्ट के रूप में हल करें।
2. Check your score, section-wise analysis and solutions online.
   ऑनलाइन अपना स्कोर, खंड-वार विश्लेषण और हल देखें।
3. Use this PDF for revision. Correct answers are shown in green.
   दोहराने के लिए इस PDF का उपयोग करें। सही उत्तर हरे रंग में दिए गए हैं।

Attempt this paper as a FREE online mock test

इस पेपर को फ्री ऑनलाइन मॉक टेस्ट के रूप में हल करें – टाइमर, स्कोर और हल के साथ

https://quicksarkari.com/dsssb-assistant-teacher-nursery-12-august-2025-shift-2-mock-test/

All DSSSB Assistant Teacher (Nursery) papers and mock tests: **quicksarkari.com/dsssb-mock-test/#assistant-teacher-nursery**

Join WhatsApp Channel | **Join Telegram Channel**

DSSSB Assistant Teacher (Nursery) – Question Paper (English + Hindi)

DSSSB सहायक अध्यापक (नर्सरी) – प्रश्न पत्र (अंग्रेज़ी + हिंदी)

Exam held on 12 August 2025, Shift 2 · 200 questions · correct answers marked ✔ in green
परीक्षा तिथि 12 अगस्त 2025, शिफ्ट 2 · 200 प्रश्न · सही उत्तर हरे रंग में ✔ से चिह्नित

> The official paper for this shift was in Hindi. The English version of each question is a translation prepared by QuickSarkari; the language-section questions are shown as asked.
> इस शिफ्ट का आधिकारिक प्रश्न पत्र हिंदी में था। प्रत्येक प्रश्न का अंग्रेज़ी संस्करण QuickSarkari द्वारा तैयार किया गया अनुवाद है; भाषा खंड के प्रश्न मूल रूप में दिए गए हैं।

General intelligence and Reasoning Ability

Q.1 In a certain code language, 'CLUB' is coded as '1364' and 'LUCK' is coded as '4169'. What is the code for 'K' in the given code language?
एक निश्चित कूट भाषा में, 'CLUB' को '1364' के रूप में और 'LUCK' को '4169' के रूप में कूटबद्ध किया जाता है। दी गई कूट भाषा में 'K' का कूट क्या है?

(1) 6
(2) 4
(3) 9 ✔
(4) 1

Q.2 Refer to the following letter and symbol series and answer the question given below. Counting is to be done from left to right only.
(Left) C T % D A @ U G R Ω Y # $ K Ω E * £ B (Right)
If all the letters are removed from the series, which of the following will be third from the left?
निम्नलिखित अक्षर और प्रतीक श्रृंखला का संदर्भ लीजिए और नीचे दिए गए प्रश्न का उत्तर दीजिए। गिनती केवल बाएँ से दाएँ की जानी है।
(बाएँ) C T % D A @ U G R Ω Y # $ K Ω E * £ B (दाएँ)
यदि श्रृंखला से सभी अक्षर हटा दिए जाएं, तो निम्नलिखित में से कौन-सा बाएं से तीसरा होगा?

(1) $
(2) %
(3) Ω ✔
(4) @

Q.3 In a certain code language, 'A + B' means 'A is the sister of B', 'A – B' means 'A is the brother of B', 'A x B' means 'A is the wife of B', 'A ÷ B' means 'A is the father of B'.
If 'L + M – N x O ÷ P', then how is L related to P?
एक निश्चित कूट भाषा में, 'A + B' का अर्थ है, कि 'A, B की बहन है', 'A – B' का अर्थ है, कि 'A, B का भाई है', 'A x B' का अर्थ है, कि 'A, B की पत्नी है', 'A ÷ B' का अर्थ है, कि 'A, B का पिता है'।
यदि 'L + M – N x O ÷ P' है, तो L का P से क्या संबंध है?

(1) Mother's sister / माता की बहन ✔
(2) Father's sister / पिता की बहन
(3) Mother's mother / माता की माता
(4) Father's mother / पिता की माता

Q.4 In a certain code language, 'SILK' is coded as '8619' and 'RISK' is coded as '6928'. What is the code for 'R' in the given code language?

एक निश्चित कूट भाषा में, 'SILK' को '8619' के रूप में और 'RISK' को '6928' के रूप में कूटबद्ध किया जाता है। दी गई कूट भाषा में 'R' का कूट क्या है?

(1) 2 ✔

(2) 8

(3) 9

(4) 6

Q.5 Which two numbers should be interchanged to make the following equation correct?
(Note: The interchange should be of the entire number and not of individual digits of a given number.)
(20 ÷ 4) × 6 + 44 − 36 + (40 ÷ 5) = 72

निम्नलिखित समीकरण को सही बनाने के लिए किन दो संख्याओं को परस्पर बदला जाना चाहिए? (नोट: संपूर्ण संख्या को परस्पर बदला जाना चाहिए, न कि दी गई संख्या के अलग-अलग अंकों को।) (20 ÷ 4) × 6 + 44 − 36 + (40 ÷ 5) = 72

(1) 44 and 36 / 44 और 36

(2) 44 and 20 / 44 और 20

(3) 36 and 20 / 36 और 20

(4) 20 and 40 / 20 और 40 ✔

Q.6 Seven boxes J, K, L, M, W, X and Y are kept one above the other but not necessarily in the same order. Only two boxes are kept below X. Only one box is kept above W. Only one box is kept between W and Y. J is kept immediately above L. K is kept at some place below M. How many boxes are kept between M and J?

सात बॉक्स J, K, L, M, W, X और Y एक के ऊपर एक रखे गए हैं लेकिन जरूरी नहीं कि वे इसी क्रम में रखे गए हों। X के नीचे केवल दो बॉक्स रखे गए हैं। W के ऊपर केवल एक बॉक्स रखा गया है। W और Y के बीच केवल एक बॉक्स रखा गया है। J को L के ठीक ऊपर रखा गया है। K को M के नीचे किसी स्थान पर रखा गया है। M और J के बीच कितने बॉक्स रखे गए हैं?

(1) Four / चार ✔

(2) One / एक

(3) Three / तीन

(4) Two / दो

Q.7 Based on the English alphabetical order, three of the following four letter-cluster pairs are alike in a certain way and thus form a group. Which letter-cluster pair among the following does NOT belong to that group?
(Note: The odd letter-cluster pair is not based on the number of consonants/vowels or their position in the letter cluster.)

अंग्रेजी वर्णमाला क्रम के आधार पर, निम्नलिखित चार अक्षर-समूह युग्मों में से तीन एक निश्चित तरीके से समान हैं और इस प्रकार एक ग्रुप बनाते हैं। निम्नलिखित में से वह कौन-सा अक्षर-समूह युग्म है, जो उस ग्रुप से संबंधित नहीं है?
(नोट: असंगत अक्षर-समूह युग्म, व्यंजनों/स्वरों की संख्या या उनकी स्थिति पर आधारित नहीं है।)

(1) JB-EX

(2) VN-QJ

(3) SK-NG

(4) OG-CJ ✔

Q.8 Read the given statements and conclusions carefully. Assuming that the information given in the statements is true, even if it appears to be at variance with commonly known facts, decide which of the given conclusions logically follow(s) from the statements.
Statements:
Some snails are insects.
Some insects are reptiles.
All fishes are snails.
Conclusions:
(I) Some fishes are insects.
(II) Some reptiles are snails.

दिए गए कथनों और निष्कर्षों का ध्यानपूर्वक अध्ययन कीजिए। यह मानते हुए कि कथनों में दी गई जानकारी सत्य है, भले ही वह सामान्यतः ज्ञात तथ्यों से भिन्न प्रतीत होती हो, तय कीजिए कि दिए गए निष्कर्षों में से कौन- सा/से निष्कर्ष कथनों का तार्किक रूप से अनुसरण करता है/करते हैं।
कथन:
कुछ घोंघे, कीड़े हैं।
कुछ कीड़े, सरीसृप हैं।
सभी मछलियाँ, घोंघे हैं।
निष्कर्ष:
(I) कुछ मछलियाँ, कीड़े हैं।
(II) कुछ सरीसृप, घोंघे हैं।

(1) Neither conclusion (I) nor (II) follows. / न तो निष्कर्ष (I) और न ही (II) अनुसरण करता है। ✔
(2) Only conclusion (I) follows. / केवल निष्कर्ष (I) अनुसरण करता है।
(3) Both conclusions (I) and (II) follow. / निष्कर्ष (I) और (II) दोनों अनुसरण करते हैं।
(4) Only conclusion (II) follows. / केवल निष्कर्ष (II) अनुसरण करता है।

Q.9 HG 16 is related to OO 4 in a certain way. In the same way, KJ 32 is related to RR 8. Following the same logic, SH 36 is related to which of the following?

एक निश्चित तरीके से HG 16 का संबंध OO 4 से है। उसी तरीके से KJ 32 का संबंध RR 8 से है। समान तर्क का अनुसरण करते हुए, SH 36 का संबंध निम्नलिखित में से किससे है?

(1) YP 8
(2) ZP 9 ✔
(3) YP 9
(4) ZP 8

Q.10 What should come in place of the question mark (?) in the given series?
18 39 62 87 114 ?

दी गई श्रृंखला में प्रश्न-चिह्न (?) के स्थान पर क्या आना चाहिए?
18 39 62 87 114 ?

(1) 112
(2) 143 ✔
(3) 104
(4) 116

Q.11 Seven friends A, B, C, D, E, F and G are sitting in a straight row, facing north. E and G sit at the ends of the row. F sits to the immediate right of E and to the immediate left of C. D sits to the immediate left of G. B sits to the immediate left of D. Who sits fourth from the left end of the row?

सात मित्र A, B, C, D, E, F और G, उत्तर दिशा की ओर अभिमुख होकर एक सीधी पंक्ति में बैठे हैं। E और G पंक्ति के छोरों पर बैठे हैं। F, E के ठीक दाईं ओर पड़ोस में और C के ठीक बाईं ओर पड़ोस में बैठा है। D, G के ठीक बाईं ओर पड़ोस में बैठा है। B, D के ठीक बाईं ओर पड़ोस में बैठा है। पंक्ति के बाएँ छोर से चौथे स्थान पर कौन बैठा है?

(1) D
(2) B
(3) C
(4) A ✔

Q.12 Select the option figure that will replace the question mark (?) in the figure given below to complete the pattern.

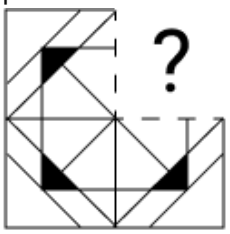

उस विकल्प आकृति का चयन करें जो पैटर्न को पूरा करने के लिए नीचे दी गई आकृति में प्रश्न-चिह्न (?) को प्रतिस्थापित करेगी।

(1) 

(2) 

(3)  ✔

(4) 

Q.13 H, I, J, K, W, X and Y are sitting around a circular table, facing the centre. K sits to the immediate left of X. H sits to the immediate left of W. W sits second to the left of Y. I sits third to the left of X. Who sits third to the right of J?

H, I, J, K, W, X और Y एक गोल मेज के परितः केंद्र की ओर अभिमुख होकर बैठे हैं। K, X के ठीक बाएं पड़ोस में बैठा है। H, W के ठीक बाएं पड़ोस में बैठा है। W, Y के बाएं दूसरे स्थान पर बैठा है। I, X के बाएं तीसरे स्थान पर बैठा है। J के दाएं तीसरे स्थान पर कौन बैठा है?

(1) W
(2) X ✔
(3) K
(4) I

QuickSarkari.com | WhatsApp Channel | Telegram: t.me/quick_sarkari

Q.14 Refer to the following letter and symbol series and answer the given question. Counting is to be done from left to right only.
(Left) G R Ω Y # E * £ B U $ K P Q % D @ C # M (Right)
If all the letters are removed from the series, which of the following will be seventh from the left?
निम्नलिखित अक्षर और प्रतीक श्रृंखला का संदर्भ लें और दिए गए प्रश्न का उत्तर दें। गिनती केवल बाएं से दाएं की जानी है।
(बाएं) G R Ω Y # E * £ B U $ K P Q % D @ C # M (दाएं)
यदि श्रृंखला से सभी अक्षर हटा दिए जाएं, तो निम्नलिखित में से कौन-सा बाएं से सातवां होगा?

(1) %
(2) **@ ✔**
(3) $
(4) Ω

Q.15 Select the pair that follows the same pattern as that followed by the two sets of pairs given below. Both pairs follow the same pattern.
NHA : TCG ZXM : FSS
उस युग्म का चयन कीजिए जो नीचे दिए गए दो युग्मों के समूह के समान पैटर्न का अनुसरण करता है। दोनों युग्म समान पैटर्न का अनुसरण करते हैं।
NHA : TCG ZXM : FSS

(1) PPH : LSD
(2) VFG : QCB
(3) **BRO : HMU ✔**
(4) HAR : LVV

Q.16 Based on the English alphabetical order, three of the following four letter-clusters are alike in a certain way and thus form a group. Which letter-cluster does NOT belong to that group?
(Note: The odd letter-cluster is not based on the number of consonants/vowels or their position in the letter cluster.)
अंग्रेजी वर्णमाला क्रम पर आधारित, निम्नलिखित चार अक्षर-समूहों में से तीन एक निश्चित तरीके से समान हैं और इस प्रकार एक ग्रुप बनाते हैं। कौन-सा अक्षर-समूह उस ग्रुप से संबंधित नहीं है?
(नोट: असंगत अक्षर समूह, व्यंजनों/स्वरों की संख्या या उनकी स्थिति पर आधारित नहीं है।)

(1) GIJ
(2) LNO
(3) **ABE ✔**
(4) VXY

Q.17 Seven boxes A, B, C, D, K, L and M are kept one above the other, but not necessarily in the same order. Only B is kept above A. Only C is kept between A and D. Only L is kept below K. How many boxes are kept between M and L?
सात बक्से A, B, C, D, K, L और M, एक के ऊपर एक रखे गए हैं, लेकिन जरूरी नहीं कि उसी क्रम में रखे हों। केवल B को A के ऊपर रखा गया है। केवल C को A और D के बीच रखा गया है। केवल L को K के नीचे रखा गया है। M और L के बीच कितने बक्से रखे गए हैं?

(1) Two / दो
(2) **One / एक ✔**
(3) Three / तीन
(4) Four / चार

Q.18 If 'D' means '÷', 'A' means '×', 'C' means '+' and 'B' means '–', then what will come in place of the question mark (?) in the following equation?
4 A 220 D 11 C 20 B 50 = ?
यदि 'D' का अर्थ '÷' है, 'A' का अर्थ '×' है, 'C' का अर्थ '+' है और 'B' का अर्थ '–' है, तो निम्नलिखित समीकरण में प्रश्न-चिह्न (?) के स्थान पर क्या आएगा?
4 A 220 D 11 C 20 B 50 = ?

(1) 40
(2) 60
(3) 50 ✔
(4) 54

Q.19 What should come in place of the question mark (?) in the given series?
7 8 16 43 107 ?
दी गई श्रृंखला में प्रश्न-चिह्न (?) के स्थान पर क्या आना चाहिए?
7 8 16 43 107 ?

(1) 112
(2) 212
(3) 156
(4) 232 ✔

Q.20 Aman is ranked 24th from the top and 12th from the bottom in his class. How many students are there in his class?
अमन अपनी कक्षा में शीर्ष से 24वें स्थान पर और नीचे से 12वें स्थान पर है। उसकी कक्षा में कितने विद्यार्थी हैं?

(1) 34
(2) 33
(3) 35 ✔
(4) 36

General Awareness

Q.21 By which process can the President of India be removed from office?
भारत के राष्ट्रपति को किस प्रक्रिया द्वारा पद से हटाया जा सकता है?

(1) No-confidence motion / अविश्वास प्रस्ताव
(2) Resignation / त्यागपत्र
(3) Imprisonment / कारावास
(4) Impeachment / महाभियोग ✔

Q.22 Rhinovirus causes which of the following infectious diseases in humans?
राइनो वायरस मनुष्यों में निम्नलिखित में से कौन-सा संक्रामक रोग पैदा करता है?

(1) Diphtheria / डिप्थीरिया (Diphtheria)
(2) Dysentery / पेचिश (Dysentery)
(3) Common cold / सर्दी-ज़ुकाम (Common cold) ✔
(4) Malaria / मलेरिया (Malaria)

Q.23 Who among the following gave the famous slogan, 'Give me blood, and I will give you freedom'?
प्रसिद्ध नारा, 'तुम मुझे खून दो, मैं तुम्हें आजादी दूंगा' निम्नलिखित में से किसने दिया था?

(1) Mahatma Gandhi / महात्मा गांधी
(2) Bal Gangadhar Tilak / बाल गंगाधर तिलक
(3) Jawaharlal Nehru / जवाहरलाल नेहरू
(4) **Subhas Chandra Bose / सुभाष चंद्र बोस ✔**

Q.24 Who first identified and recorded the flake tools of the Middle Palaeolithic period in India?
भारत में मध्य पुरापाषाण काल के शल्क उपकरणों की सर्वप्रथम पहचान और अभिलेखन किसने किया था?

(1) **Sankalia / सांकलिया ✔**
(2) R Korisettar / आर कोरीसेट्टर
(3) Jerome Jacobson / जेरोम जैकबसन
(4) Ajit Prasad / अजित प्रसाद

Q.25 According to Census 2011, which of the following Union Territories had the highest sex ratio?
जनगणना 2011 के अनुसार, निम्नलिखित में से किस केंद्र शासित प्रदेश में लिंगानुपात सबसे अधिक था?

(1) Daman and Diu / दमन और दीव
(2) **Puducherry / पुदुचेरी ✔**
(3) Chandigarh / चंडीगढ़
(4) Lakshadweep / लक्षद्वीप

Q.26 In which of the following states was the All India Governor's Gold Cup, 2024 (Football) held?
ऑल इंडिया गवर्नर्स गोल्ड कप, 2024, (फुटबॉल), निम्नलिखित में से किस राज्य में आयोजित किया गया था?

(1) Haryana / हरियाणा
(2) Rajasthan / राजस्थान
(3) Uttarakhand / उत्तराखंड
(4) **Sikkim / सिक्किम ✔**

Q.27 Which of the following economists is known for propounding the theory that explains the relationship between aggregate income and consumption in an economy?
निम्नलिखित में से किस अर्थशास्त्री को, अर्थव्यवस्था में समग्र आय और उपभोग के बीच संबंध को स्पष्ट करने वाले सिद्धांत के प्रतिपादन के लिए जाना जाता है?

(1) Adam Smith / एडम स्मिथ
(2) Karl Marx / कार्ल मार्क्स
(3) Milton Friedman / मिल्टन फ्रीडमैन
(4) **John Maynard Keynes / जॉन मेनार्ड कीन्स ✔**

Q.28 Which of the following committees is known for its significant contribution to the methodology of measuring poverty in India?
निम्नलिखित में से कौन-सी समिति भारत में गरीबी मापने की पद्धति में अपने महत्वपूर्ण योगदान के लिए जानी जाती है?

(1) **Tendulkar Committee / तेंदुलकर समिति ✔**
(2) Gadgil Committee / गाडगिल समिति
(3) Malhotra Committee / मल्होत्रा समिति
(4) Narasimham Committee / नरसिंहम समिति

Q.29 Thrissur Pooram, famous as 'the mother of all Poorams', is a major temple festival celebrated in which Indian state?

'सभी पूरमों की जननी' के रूप में प्रसिद्ध त्रिशूर पूरम, किस भारतीय राज्य में मनाया जाने वाला एक प्रमुख मंदिर उत्सव है?

(1) Karnataka, famous for the Dasara festivities of Mysuru / कर्नाटक, मैसूर के दशहरा उत्सवों के लिए प्रसिद्ध

(2) Tamil Nadu, famous for the Meenakshi temple festivals / तमिलनाडु, मीनाक्षी मंदिर उत्सवों के लिए प्रसिद्ध

(3) Kerala, famous for its vibrant temple traditions / केरल, अपनी जीवंत मंदिर परंपराओं के लिए प्रसिद्ध ✔

(4) Andhra Pradesh, the centre of the Tirupati temple rituals / आंध्र प्रदेश, तिरुपति मंदिर अनुष्ठानों का केंद्र

Q.30 Which of the following types of climate is predominantly found in India?

निम्नलिखित में से किस प्रकार की जलवायु भारत में प्रमुखता से पाई जाती है?

(1) Tropical monsoon / उष्ण मानसूनी ✔

(2) Polar / ध्रुवीय

(3) Continental / महाद्वीपीय

(4) Mediterranean / भूमध्यसागरीय

Q.31 Under which Article of the Indian Constitution is the Finance Commission constituted?

वित्त आयोग का गठन भारतीय संविधान के किस अनुच्छेद के अंतर्गत किया जाता है?

(1) Article 148 / अनुच्छेद 148

(2) Article 315 / अनुच्छेद 315

(3) Article 324 / अनुच्छेद 324

(4) Article 280 / अनुच्छेद 280 ✔

Q.32 Which of the following common measures is used to define the poverty line in India?

भारत में गरीबी रेखा को परिभाषित करने के लिए निम्नलिखित में से कौन-सा सामान्य उपाय उपयोग किया जाता है?

(1) Employment status / रोज़गार की स्थिति

(2) Per capita income / प्रति व्यक्ति आय

(3) Consumption expenditure / उपभोग व्यय ✔

(4) Literacy rate / साक्षरता दर

Q.33 In which year was the 'Official Languages Act' passed?

'राजभाषा अधिनियम', किस वर्ष पारित किया गया था?

(1) 1947

(2) 1950

(3) 1986

(4) 1963 ✔

Q.34 From which country has the parliamentary system of government in the Indian Constitution been borrowed?

भारतीय संविधान में संसदीय शासन प्रणाली किस देश से ली गई है?

(1) UK / यूके (UK) ✔

(2) France / फ्रांस

(3) Germany / जर्मनी

(4) USA / यूएसए (USA)

Q.35 Which of the following phloem elements are non-living?
निम्नलिखित में से कौन-से फ्लोएम अवयव निर्जीव हैं?

(1) Sieve cells / चालनी कोशिकाएँ (Sieve cells)
(2) Phloem parenchyma / फ्लोएम पैरेन्काइमा (Phloem parenchyma)
(3) Phloem fibres / फ्लोएम फाइबर (Phloem fibres) ✔
(4) Companion cells / सहचर कोशिकाएँ (Companion cells)

Q.36 Which of the following ministries officially launched the PM E-DRIVE scheme in October 2024?
निम्नलिखित में से किस मंत्रालय ने अक्टूबर 2024 में आधिकारिक रूप से पीएम ई-ड्राइव (PM E-DRIVE) योजना प्रारंभ की?

(1) Ministry of Heavy Industries / भारी उद्योग मंत्रालय ✔
(2) Ministry of Housing and Urban Affairs / आवासन और शहरी कार्य मंत्रालय
(3) Ministry of Road Transport and Highways / सड़क परिवहन एवं राजमार्ग मंत्रालय
(4) Ministry of Electronics and Information Technology / इलेक्ट्रॉनिक्स और सूचना प्रौद्योगिकी मंत्रालय

Q.37 Who founded the Indian Home Rule League along with Annie Besant in 1916?
1916 में एनी बेसेंट के साथ इंडियन होम रूल लीग की स्थापना किसने की?

(1) Bal Gangadhar Tilak / बाल गंगाधर तिलक ✔
(2) Mahatma Gandhi / महात्मा गांधी
(3) Jawaharlal Nehru / जवाहरलाल नेहरू
(4) Gopal Krishna Gokhale / गोपाल कृष्ण गोखले

Q.38 In 2020, the Bodo language written in the Devanagari script was approved as the associate official language of which state?
2020 में, देवनागरी लिपि में लिखी जाने वाली बोडो भाषा को किस राज्य की सहायक राजभाषा के रूप में अनुमोदित किया गया था?

(1) Tripura / त्रिपुरा
(2) Meghalaya / मेघालय
(3) Assam / असम ✔
(4) West Bengal / पश्चिम बंगाल

Q.39 In September 2024, which initiative was launched by the Union Ministry of Electronics and Information Technology (MeitY) to support Blockchain-as-a-Service (BaaS)?
सितंबर 2024 में, केंद्रीय इलेक्ट्रॉनिक्स और सूचना प्रौद्योगिकी मंत्रालय (MeitY) ने ब्लॉकचेन-एज़-ए-सर्विस (BaaS) का समर्थन करने के लिए किस पहल को प्रारंभ किया?

(1) National Blockchain Innovation Hub / नेशनल ब्लॉकचेन इनोवेशन हब (National Blockchain Innovation Hub)
(2) India Blockchain Development Framework / इंडिया ब्लॉकचेन डेवलपमेंट फ्रेमवर्क (India Blockchain Development Framework)
(3) Digital India Blockchain Initiative / डिजिटल इंडिया ब्लॉकचेन पहल (Digital India Blockchain Initiative)
(4) Vishvasya-Blockchain Technology Stack / विश्वस्य-ब्लॉकचेन टेक्नोलॉजी स्टैक (Vishvasya-Blockchain Technology Stack) ✔

Q.40 In which state of India is 'Sundarbans', the world's largest mangrove forest, located?
विश्व का सबसे बड़ा मैंग्रोव वन 'सुंदरबन' भारत के किस राज्य में स्थित है?

(1) West Bengal / पश्चिम बंगाल ✔
(2) Andhra Pradesh / आंध्र प्रदेश
(3) Kerala / केरल
(4) Odisha / ओडिशा

Arithmetical and Numerical Ability

Q.41 A person runs a distance of 1200 m along a road in 5 minutes. What is his speed (in km/hr)?
एक व्यक्ति एक सड़क के अनुदिश 1200 m की दूरी 5 मिनट में दौड़कर तय कर लेता है। उसकी चाल (km/hr में) कितनी है?

(1) 14.4 ✔
(2) 15.0
(3) 12.8
(4) 13.6

Q.42 Rohit deposits a certain sum at an interest rate of 20% per annum, compounded annually. At the end of 2 years, he receives a total of ₹28,188. Find the sum (in ₹) deposited by Rohit.
रोहित एक निश्चित धनराशि को 20% वार्षिक ब्याज दर पर जमा करता है, जो वार्षिक रूप से संयोजित होती है। 2 वर्षों के अंत में, वह कुल ₹28,188 प्राप्त करता है। रोहित द्वारा जमा की गई धनराशि (₹ में) ज्ञात कीजिए।

(1) 19,575 ✔
(2) 19,109
(3) 19,624
(4) 19,422

Q.43 During a New Year sale, a company is offering customers a 'Buy 4 sweaters and get 1 free' offer. Find the discount percentage in this deal.
नव-वर्ष की सेल के दौरान, एक कंपनी ग्राहकों को '4 स्वेटर खरीदें और 1 मुफ्त पाएं' ऑफर दे रही है। इस सौदे में, छूट का प्रतिशत ज्ञात कीजिए।

(1) 25%
(2) 22%
(3) 20% ✔
(4) 18%

Q.44 Which of the following ratios is the smallest?
निम्नलिखित में से कौन-सा अनुपात, सबसे छोटा है?

(1) 4 : 9 ✔
(2) 7 : 12
(3) 1 : 2
(4) 6 : 11

Q.45 If x : y = 7 : 5, then find $(x^2 + y^2) : (x^2 - y^2)$.

यदि x : y = 7 : 5 है, तो $(x^2 + y^2) : (x^2 - y^2)$ ज्ञात कीजिए।

(1) 37 : 12 ✔

(2) 7 : 5

(3) 29 : 20

(4) 5 : 2

Q.46 The average of eight numbers is 56, and the average of the first seven numbers is 55. Find the eighth number.

आठ संख्याओं का औसत 56 है, और प्रथम सात संख्याओं का औसत 55 है। आठवीं संख्या ज्ञात कीजिए।

(1) 63 ✔

(2) 56

(3) 55

(4) 62

Q.47 The given pie chart shows the expenditure of a family on various items and their savings. Study the pie chart carefully and answer the given question.

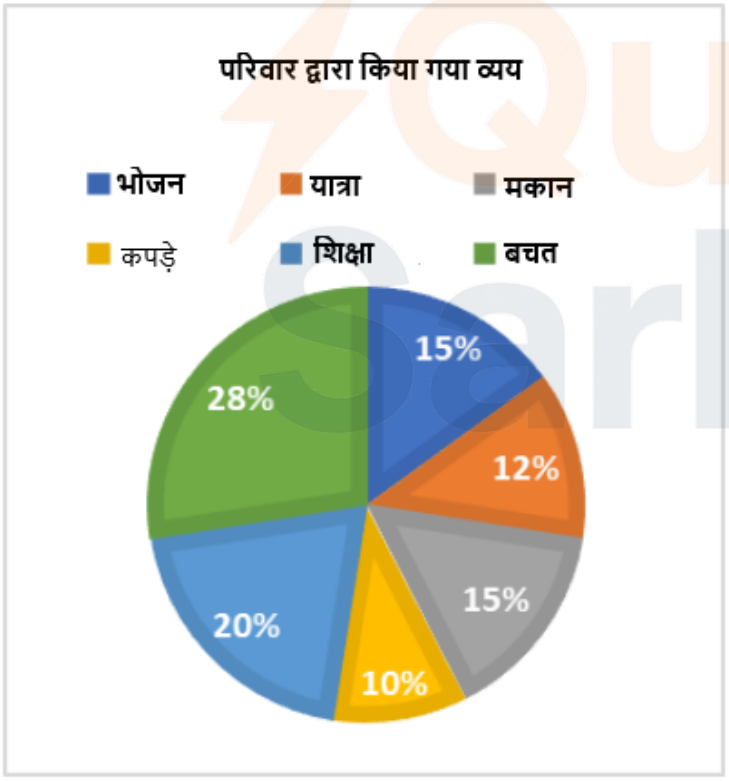

Find the ratio of the expenditure on food to that on education.

दिया गया पाई चार्ट एक परिवार द्वारा विभिन्न वस्तुओं पर किए गए व्यय और उनकी बचत को दर्शाता है।

पाई चार्ट का ध्यानपूर्वक अध्ययन कीजिए और दिए गए प्रश्न का उत्तर दीजिए।

भोजन और शिक्षा पर व्यय का अनुपात ज्ञात कीजिए।

(1) 2 : 3

(2) 3 : 4 ✔

(3) 4 : 3

(4) 3 : 2

Q.48 Two pipes A and B can fill a tank in 10 hours and 15 hours, respectively. If both the pipes are opened together in an empty tank, how many hours will they take to fill it?

दो पाइप A और B एक टैंक को क्रमशः 10 घंटे और 15 घंटे में भर सकते हैं। यदि दोनों पाइपों को एक साथ किसी खाली टैंक में चालू कर दिया जाए, तो उनके द्वारा इसे भरने में कितने घंटे लगेंगे?

(1) 3

(2) 6 ✔

(3) 4

(4) 5

Q.49 Find the value of $3.\overline{26} - 2.\overline{14} + 1.\overline{33}$

$3.\overline{26} - 2.\overline{14} + 1.\overline{33}$ का मान ज्ञात कीजिए।

(1) 243/99 ✔

(2) 245/99

(3) 288/99

(4) 214/99

Q.50 Find the area (in cm^2) of an equilateral triangle with side 76 cm.

76 cm भुजा वाले समबाहु त्रिभुज का क्षेत्रफल (cm^2 में) ज्ञात कीजिए।

(1) 1439√3

(2) 1442√3

(3) 1444√3 ✔

(4) 1443√3

Q.51 The volume of a spherical ball is 38,808 cm3. If the cost of painting the surface of the ball is ₹12.5 per cm^2, then find the total cost (in ₹) of painting the ball. (Use π = 22/7)

एक गोलाकार गेंद का आयतन 38,808 cm3 है। यदि गेंद के पृष्ठ को पेंट करने की लागत ₹12.5 प्रति cm^2 है, तो गेंद को पेंट करने की कुल लागत (₹ में) ज्ञात कीजिए। (π = 22/7 का उपयोग कीजिए)

(1) 60,390

(2) 72,000

(3) 63,900

(4) 69,300 ✔

Q.52 30 men can complete the digging of a tube well in 20 days. They started working together, but after a few days 20 men leave the work. If the remaining work was completed in 45 days, then after how many days did the 20 men leave the work?

30 आदमी एक नलकूप की खुदाई 20 दिन में पूरी कर सकते हैं। उन्होंने साथ मिलकर कार्य करना शुरू किया, लेकिन कुछ दिनों बाद 20 आदमी कार्य छोड़ देते हैं। यदि शेष कार्य 45 दिन में पूरा हुआ, तो कितने दिन बाद 20 आदमी कार्य छोड़कर चले गए थे?

(1) 7 days / 7 दिन

(2) 6 days / 6 दिन

(3) 4 days / 4 दिन

(4) 5 days / 5 दिन ✔

Q.53 On Monday, 1500 people visited an exhibition, while on Tuesday 1680 people visited. Compared to the number of people who visited the exhibition on Monday, the number of people who visited the exhibition on Tuesday increased by _____ %.

सोमवार को एक प्रदर्शनी देखने 1500 लोग आए, जबकि मंगलवार को 1680 लोग आए। सोमवार को प्रदर्शनी देखने आने वाले लोगों की संख्या के तुलना में, मंगलवार को प्रदर्शनी देखने आने वाले लोगों की संख्या में _____ % की वृद्धि हुई।

(1) 10.71

(2) 11.71

(3) **12 ✔**

(4) 13

Q.54 Find the period (in years) in which a sum of ₹1,200 will amount to ₹2,340 at the rate of 10% per annum simple interest.

वह अवधि (वर्ष में) ज्ञात कीजिए जिसमें ₹1,200 की धनराशि 10% वार्षिक साधारण ब्याज की दर से, ₹2,340 हो जाएगी।

(1) 8.5

(2) 11.5

(3) 10.5

(4) **9.5 ✔**

Q.55 Arvind bought an article for ₹x. He sold it to Biru at a loss of 15%. Biru spent ₹176 on its transportation and sold it to Meenu at a profit of 50%. If Meenu bought it for ₹1,539, then find the value of x (in ₹).

अरविंद ने ₹x में एक वस्तु खरीदी। उसने इसे 15% हानि पर बीरू को बेच दिया। बीरू ने इसके परिवहन पर ₹176 खर्च किए तथा इसे 50% के लाभ पर मीनू को बेच दिया। यदि मीनू ने इसे ₹1,539 में खरीदा, तो x का मान (₹ में) ज्ञात कीजिए।

(1) **1,000 ✔**

(2) 1,031

(3) 1,046

(4) 1,010

Q.56 A truck starts moving from city P at 8:00 a.m. at a speed of 45 km/hr towards city Q, situated at a distance of 360 km from city P. A car starts moving from city Q towards city P at 10:00 a.m. at a speed of 75 km/hr. At what time will they meet each other, and at what distance from city P will they cross each other?

एक ट्रक 8:00 a.m. पर 45 km/hr की चाल से शहर P से 360 km की दूरी पर स्थित शहर Q की ओर चलना शुरू करता है। एक कार 10:00 a.m. पर 75 km/hr की चाल से शहर Q से शहर P की ओर चलना शुरू करती है। वे एक दूसरे से किस समय मिलेंगे और शहर P से कितनी दूरी पर वे एक-दूसरे को पार करेंगे?

(1) **12:15 p.m.; and 191.25 km / 12:15 p.m.; और 191.25 km ✔**

(2) 12:15 p.m.; and 175.25 km / 12:15 p.m.; और 175.25 km

(3) 12:35 p.m.; and 175.25 km / 12:35 p.m.; और 175.25 km

(4) 12:35 p.m.; and 191.25 km / 12:35 p.m.; और 191.25 km

Q.57 60% of 40 is how much more than 2/5 of 35?

40 का 60%, 35 के 2/5 से कितना अधिक है?

(1) **10 ✔**

(2) 8

(3) 7

(4) 4

Q.58 Iyer incurs a loss of 15% by selling an article for ₹765. At what price should he sell this article to earn a profit of 15%?

एक वस्तु ₹765 में बेचने पर अय्यर को 15% की हानि होती है। 15% का लाभ अर्जित करने के लिए उसे, इस वस्तु को किस मूल्य पर बेचना होगा?

(1) ₹795

(2) **₹1,035 ✔**

(3) ₹900

(4) ₹780

Q.59 The average weight of 30 boys in a group is 52 kg. Three more boys weighing 54 kg, 58 kg and 61 kg join this group. Find the new average weight of all the boys (rounded off to two decimal places).

एक समूह में 30 लड़कों का औसत वजन 52 kg है। 54 kg, 58 kg और 61 kg वजन वाले तीन अतिरिक्त लड़के इस समूह में शामिल हो जाते हैं। सभी लड़कों का नया औसत वजन (दशमलव के दो अंकों तक पूर्णांकित) ज्ञात कीजिए।

(1) 52.00 kg

(2) 54.00 kg

(3) 54.63 kg

(4) **52.52 kg ✔**

Q.60 Find the simplified value of the following.

[65/26 × 1/18 − {(38/57 ÷ 19/95) − (82/123 × 78/12)} of 84/27]

निम्नलिखित का सरलीकृत मान ज्ञात कीजिए।

[65/26 × 1/18 − {(38/57 ÷ 19/95) − (82/123 × 78/12)} का 84/27]

(1) 13/2

(2) **13/4 ✔**

(3) 13/3

(4) 13/5

English Language and Comprehension

Q.61 Select the most appropriate preposition to fill in the blank.

The trekking team travelled _____ the country, visiting various landmarks.

(1) besides

(2) **across ✔**

(3) underneath

(4) among

Q.62 Select the most appropriate article to fill in the blank.

_____ camels are commercially useful for transportation in some villages of Rajasthan.

(1) A

(2) An

(3) **The ✔**

(4) No article required

Q.63 Sentences of a paragraph are given below in jumbled order. Arrange the sentences in the correct order to form a meaningful and coherent paragraph.
A. In fact, in the heat of this buying blitz, even parents who desperately need to say no find themselves reaching for their credit cards.
B. But today's kids want much more, partly because there is so much more to want.
C. Today's parents themselves raised on values of thrift and self-sacrifice, grew up in a culture where 'no' was a household word.
D. One survey of teenagers found that when they crave for something new, most expect to ask nine times before their parents give in.
E. Psychologists say that parents who overindulge their kids, set them up to be more vulnerable to future anxiety and depression.

(1) ECDBA
(2) CBDAE
(3) **ECBDA ✔**
(4) BCDAE

Q.64 Select the most appropriate option to fill in the blank.
Bravo! Our Indian army has exulted _____ our ruthless enemy.

(1) at
(2) into
(3) above
(4) **over ✔**

Q.65 Select the option that can be used as a one-word substitute for the underlined group of words in the following sentence.
The serious and intellectually sophisticated discussions at the literary festival explored complex topics, demonstrating a mix of knowledge and intellectual curiosity among the participants.

(1) Aesthetic
(2) **Highbrow ✔**
(3) Altruistic
(4) Palpable

Q.66 Select the most appropriate article to fill in the blank.
His brother is a doctor who lives in _____ Netherlands since 2015.

(1) No article required
(2) **The ✔**
(3) An
(4) A

Q.67 Select the option that can be used as a one-word substitute for the given phrase. An animal that has four feet.

(1) Arbiter
(2) Fierce
(3) Cavalier
(4) **Quadruped ✔**

Q.68 Sentences of a paragraph are given below in jumbled order. Arrange the sentences in the correct order to form a meaningful and coherent paragraph.
A) Hurricanes, driven by heat from ocean waters, are often referred to as nature's steam engines.
B) As hurricanes move over the oceans, they convert this heat into immense kinetic energy, causing widespread devastation to islands and coastal cities, requiring extensive repairs.
C) With ocean temperatures now hitting record highs, these 'engines' are becoming more erratic, carving unpredictable paths, slowing down and growing increasingly dangerous.
D) Now, there's an urgent need to comprehend how hurricanes are reshaping established patterns, with the hope of adapting to these new realities.

(1) ABCD
(2) ABDC
(3) ACDB
(4) ACBD ✔

Q.69 Select the most appropriate adjective to fill in the blank.
My house is _____ than yours.

(1) much small
(2) smaller ✔
(3) smallest
(4) small

Q.70 Select the most appropriate option that can replace the underlined segment in the following sentence.
He is quite worthless if he fails at this juncture.

(1) a dime a dozen
(2) in the nick of time
(3) in hand and glove
(4) not worth his salt ✔

Q.71 Select the most appropriate ANTONYM of the given word.
Repeal

(1) Simplify
(2) Distinguish
(3) Break
(4) Confirm ✔

Q.72 Select the most appropriate idiom that can substitute the underlined words in the given sentence.
Hunkering down and trying to go through the difficult time, seems to be the safest course.

(1) run like wind
(2) hit the sack
(3) weather the storm ✔
(4) waste not, want not

QuickSarkari.com | WhatsApp Channel | Telegram: t.me/quick_sarkari

Q.73 Select the most appropriate option to fill in the blank.
The train that we boarded from Mumbai was _____ than the Mumbai local train.

(1) fastest
(2) fast
(3) faster ✔
(4) most fastest

Q.74 Select the most appropriate meaning of the underlined word in the given sentence. He did not concern himself with the interests of his own class, and consequently, some thought him proud and others thought him stupid.

(1) irrelevantly
(2) as a result ✔
(3) reluctantly
(4) worthlessness

Q.75 Select the INCORRECTLY spelt word.

(1) Sequoia
(2) Acrophobia
(3) Onomatopoia ✔
(4) Animalia

Q.76

Read the passage and answer the question that follows.
Food is more than survival. With it we make friends, court lovers, and count our blessings. The sharing of food has always been part of the human story. From Qesem Cave near Tel Aviv comes evidence of ancient meals prepared at a 3,00,000-year-old hearth, the oldest ever found, where diners gathered to eat together. Retrieved from the ashes of Vesuvius: a circular loaf of bread with scoring marks, baked to be divided. 'To break bread together', a phrase as old as the Bible, captures the power of a meal to forge relationships, bury anger, provoke laughter. Children make mud pies, have tea parties, trade snacks to make friends, and mimic the rituals of adults. They celebrate with sweets from the time of their first birthday, and the association of food with love will continue throughout life—and in some belief systems, into the afterlife. Consider the cultures that leave delicacies by the gravesides to let the departed know they are not forgotten. And even when times are tough, the urge to celebrate endures. In the Antarctic in 1902, during Robert Falcon Scott's Discovery expedition, the men prepared a fancy meal for Midwinter Day, the shortest day and longest night of the year. Hefty provisions had been brought on board. Forty-five live sheep were slaughtered and hung from the rigging, frozen by the elements until it was time to feast. The cold, the darkness, and the isolation were forgotten for a while. "With such a dinner," Scott wrote, "we agreed that life in the Antarctic Regions was worth living."

Why do people leave delicacies by gravesides?

(1) To let the dead people know that an afterlife exists
(2) To let the dead people know that they are still remembered ✔
(3) To let the dead people know that the tradition of cooking continues
(4) To let the dead people know that they are still hungry

Q.77

Read the passage and answer the question that follows.
Food is more than survival. With it we make friends, court lovers, and count our blessings. The sharing of food has always been part of the human story. From Qesem Cave near Tel Aviv comes evidence of ancient meals prepared at a 3,00,000-year-old hearth, the oldest ever found, where diners gathered to eat together. Retrieved from the ashes of Vesuvius: a circular loaf of bread with scoring marks, baked to be divided. 'To break bread together', a phrase as old as the Bible, captures the power of a meal to forge relationships, bury anger, provoke laughter. Children make mud pies, have tea parties, trade snacks to make friends, and mimic the rituals of adults. They celebrate with sweets from the time of their first birthday, and the association of food with love will continue throughout life—and in some belief systems, into the afterlife. Consider the cultures that leave delicacies by the gravesides to let the departed know they are not forgotten. And even when times are tough, the urge to celebrate endures. In the Antarctic in 1902, during Robert Falcon Scott's Discovery expedition, the men prepared a fancy meal for Midwinter Day, the shortest day and longest night of the year. Hefty provisions had been brought on board. Forty-five live sheep were slaughtered and hung from the rigging, frozen by the elements until it was time to feast. The cold, the darkness, and the isolation were forgotten for a while. "With such a dinner," Scott wrote, "we agreed that life in the Antarctic Regions was worth living."

Which of the following can be the most appropriate title for the above passage?

(1) Mimicking Rituals of Adults
(2) Nutrition and Taste: A Deadly Combination
(3) **Sharing Food: Part of Human Story ✔**
(4) Courting Lovers Through Food

Q.78

Read the passage and answer the question that follows.
Food is more than survival. With it we make friends, court lovers, and count our blessings. The sharing of food has always been part of the human story. From Qesem Cave near Tel Aviv comes evidence of ancient meals prepared at a 3,00,000-year-old hearth, the oldest ever found, where diners gathered to eat together. Retrieved from the ashes of Vesuvius: a circular loaf of bread with scoring marks, baked to be divided. 'To break bread together', a phrase as old as the Bible, captures the power of a meal to forge relationships, bury anger, provoke laughter. Children make mud pies, have tea parties, trade snacks to make friends, and mimic the rituals of adults. They celebrate with sweets from the time of their first birthday, and the association of food with love will continue throughout life—and in some belief systems, into the afterlife. Consider the cultures that leave delicacies by the gravesides to let the departed know they are not forgotten. And even when times are tough, the urge to celebrate endures. In the Antarctic in 1902, during Robert Falcon Scott's Discovery expedition, the men prepared a fancy meal for Midwinter Day, the shortest day and longest night of the year. Hefty provisions had been brought on board. Forty-five live sheep were slaughtered and hung from the rigging, frozen by the elements until it was time to feast. The cold, the darkness, and the isolation were forgotten for a while. "With such a dinner," Scott wrote, "we agreed that life in the Antarctic Regions was worth living."

What does the phrase 'breaking bread together' convey?

(1) It conveys making mud pies, having tea parties and trading snacks to make friends.
(2) It conveys leaving delicacies by gravesides for the departed ones.
(3) **It conveys the power of a meal to forge relationships, bury anger and provoke laughter. ✔**
(4) It conveys a circular loaf of bread with scoring marks, baked to be divided.

Q.79

Read the passage and answer the question that follows.
Food is more than survival. With it we make friends, court lovers, and count our blessings. The sharing of food has always been part of the human story. From Qesem Cave near Tel Aviv comes evidence of ancient meals prepared at a 3,00,000-year-old hearth, the oldest ever found, where diners gathered to eat together. Retrieved from the ashes of Vesuvius: a circular loaf of bread with scoring marks, baked to be divided. 'To break bread together', a phrase as old as the Bible, captures the power of a meal to forge relationships, bury anger, provoke laughter. Children make mud pies, have tea parties, trade snacks to make friends, and mimic the rituals of adults. They celebrate with sweets from the time of their first birthday, and the association of food with love will continue throughout life—and in some belief systems, into the afterlife. Consider the cultures that leave delicacies by the gravesides to let the departed know they are not forgotten. And even when times are tough, the urge to celebrate endures. In the Antarctic in 1902, during Robert Falcon Scott's Discovery expedition, the men prepared a fancy meal for Midwinter Day, the shortest day and longest night of the year. Hefty provisions had been brought on board. Forty-five live sheep were slaughtered and hung from the rigging, frozen by the elements until it was time to feast. The cold, the darkness, and the isolation were forgotten for a while. "With such a dinner," Scott wrote, "we agreed that life in the Antarctic Regions was worth living."

What made people forget the cold, darkness, and isolation for a while in Antarctic in 1902?

(1) A fancy meal shared with each other ✓
(2) Being surrounded by 45 sheep
(3) It being a midwinter day
(4) Leaving delicacies in the graveyard

Q.80

Read the passage and answer the question that follows.
Food is more than survival. With it we make friends, court lovers, and count our blessings. The sharing of food has always been part of the human story. From Qesem Cave near Tel Aviv comes evidence of ancient meals prepared at a 3,00,000-year-old hearth, the oldest ever found, where diners gathered to eat together. Retrieved from the ashes of Vesuvius: a circular loaf of bread with scoring marks, baked to be divided. 'To break bread together', a phrase as old as the Bible, captures the power of a meal to forge relationships, bury anger, provoke laughter. Children make mud pies, have tea parties, trade snacks to make friends, and mimic the rituals of adults. They celebrate with sweets from the time of their first birthday, and the association of food with love will continue throughout life—and in some belief systems, into the afterlife. Consider the cultures that leave delicacies by the gravesides to let the departed know they are not forgotten. And even when times are tough, the urge to celebrate endures. In the Antarctic in 1902, during Robert Falcon Scott's Discovery expedition, the men prepared a fancy meal for Midwinter Day, the shortest day and longest night of the year. Hefty provisions had been brought on board. Forty-five live sheep were slaughtered and hung from the rigging, frozen by the elements until it was time to feast. The cold, the darkness, and the isolation were forgotten for a while. "With such a dinner," Scott wrote, "we agreed that life in the Antarctic Regions was worth living."

What is the meaning of the word 'forge' in the context of this passage?

(1) To put an effort into making something strong and successful ✓
(2) To make an illegal copy of something
(3) To make bread crispy and healthy
(4) A place where objects are made by heating and shaping metal

QuickSarkari.com | WhatsApp Channel | Telegram: t.me/quick_sarkari

Hindi Language and Comprehension

Q.81 निम्नलिखित रेखांकित वाक्यांश के लिए विकल्प में से एक शब्द का चयन करें।
मोहन हर काम को जरूरत से ज्यादा देर में करने वाला है।

(1) दीर्घसूत्री
(2) **विलम्बी ✔**
(3) अदूरदर्शी
(4) दीर्घदर्शी

Q.82 निम्नलिखित विकल्पों में से कौन सा एक विलोम युग्म सही है?

(1) अवनि - अंतिम
(2) आलोक - व्यय
(3) अभ्यास - प्रतिमुख
(4) **अत्यधिक - अत्यल्प ✔**

Q.83 निम्नलिखित लोकोक्ति के लिए उपयुक्त अर्थ का चयन करें- 'कोयल होये न उजली सौ मन साबुन लाइ'

(1) चंचल मन वाला
(2) **स्वभाव नहीं बदलता ✔**
(3) स्वार्थी व्यक्ति
(4) मिथ्या आडंबर

Q.84 निम्नलिखित लोकोक्ति के लिए उपयुक्त अर्थ का चयन करें- 'अँधा पीसे कुत्ता खाए'

(1) एक की मजबूरी से दूसरे को लाभ हो जाता है
(2) छोटा बड़े को उपदेश देता है
(3) अंधे व्यक्ति का फायदा कुत्ता उठा लेता है
(4) **अभागा सुख से वंचित रह जाता है ✔**

Q.85 दिए गए वाक्य में उचित कारक का प्रयोग कर वाक्य पूर्ण करें- 'मेज फल रखे हैं।'

(1) के
(2) ने
(3) से
(4) **पर ✔**

Q.86 दिए गए वाक्यों में से सही वाक्य क्रम का चयन कीजिए।

(1) उसकी आ गई दुरवस्था देखकर दया ।
(2) गई उसकी दुरवस्था देखकर दया आ।
(3) **उसकी दुरवस्था देखकर दया आ गई। ✔**
(4) उसकी देखकर दया आ गई दुरवस्था ।

Q.87 तद्भव शब्द का चयन करें-

(1) कर्पूर
(2) **कपड़ा ✔**
(3) कटुक
(4) कर्पट

Q.88 दिए गए वाक्य के किस भाग में त्रुटि है?
यदि साहित्य को सौंदर्य की मूर्त अभिव्यक्ति कहा जाए, तो कालीदास उसके सबसे श्रेष्ठ मूर्तिकार कहे जा सकते हैं।

(1) साहित्य
(2) **कालीदास ✔**
(3) अभिव्यक्ति
(4) मूर्तिकार

Q.89 दिए गए वाक्यों में से सही वाक्य क्रम का चयन कीजिए।

(1) का भाई उसके नाम शशिकांत है।
(2) **उसके भाई का नाम शशिकांत है। ✔**
(3) भाई उसके नाम का शशिकांत है।
(4) भाई उसके का नाम शशिकांत है।

Q.90 निम्नलिखित विकल्पों में से कौन सा एक विलोम युग्म सही है?

(1) आहूत - आहत
(2) **अर्पण - ग्रहण ✔**
(3) उत्कृष्ट- उत्कर्ष
(4) अवशेष - अम्बर

Q.91 दिए गए वाक्य में उचित कारक का प्रयोग कर वाक्य पूर्ण करें- 'पिता जी खाना बनाना है।'

(1) **के लिए ✔**
(2) में
(3) पर
(4) से

Q.92 दिए गए विकल्प में से क्रिया-विशेषण के उचित भेद को चुन कर वाक्य पूर्ण करें - अध्यापक ने सुबह बच्चों को पढ़ाया। वाक्य में ..... क्रिया-विशेषण है।

(1) परिमाणवाचक
(2) रीतिवाचक
(3) **कालवाचक ✔**
(4) स्थानवाचक

Q.93 नीचे दिए गए वाक्य के किस भाग में त्रुटि है ?
'तब हम लोगों को हंसी आती है।'

(1) हम लोगों को
(2) तब
(3) **हंसी ✔**
(4) आती है

Q.94 निम्नलिखित में से 'द्विज' शब्द का अर्थ क्या है?

(1) **चंद्रमा ✔**
(2) बूँद
(3) शिथिल
(4) सैनिक

QuickSarkari.com | WhatsApp Channel | Telegram: t.me/quick_sarkari

Q.95 "कुबेर का बगीचा" निम्न वाक्यांश के लिए एक शब्द कौनसा है?

(1) विस्र

(2) नलकूबर

(3) **चैत्ररथ ✔**

(4) पुष्पक

Q.96

दिए गए गद्यांश के आधार पर निम्नलिखित प्रश्नों के उत्तर दीजिए।
मैं सारे काम करती हूँ, सातों दिन, हर वक्त काम करती हूँ, काम में पिसने (घोर परिश्रम) से यहाँ कोई बचाव नहीं, (एक महिला ने इस प्रश्न का उत्तर दिया)
"तुम क्या काम करती हो?" और मेरी पत्नी कोई काम नहीं करती, वह घर पर है, (एक पुरुष ने इस प्रश्न का उत्तर दिया)
"तुम्हारी पत्नी क्या काम करती है ?" यह दो प्रत्युत्तर जाति,वर्ग, सीमा से परे महिलाओं की काम की जटिल प्रकृति का सूचक है। वास्तव में महिलाओं के कार्य ने समाज को संपोषित किया है। महिलाएं गृहस्थी के लिए दौड़ती हैं, बच्चों का पालन -पोषण करती हैं, बीमार और बुजुर्गों की चिंता करती हैं, खेती पर और कारखानों में कठिन परिश्रम करती हैं।
महिलाएं दफ़्तर, खेती ,कारखानों में काम पर दिखती हैं पर अधिकतर समय उनके व्यस्त हाथों को सामाजिक परिवेश की वजह से लोग महत्त्व नहीं देते। उनके कार्यों और योगदान को समाज यह मानकर चलता है कि परिवार की बेहतरी और उसको बनाए रखने का उनका योगदान, समाज-परिवार के लिए उनकी चिंता, पारिवारिक सदस्यों का पालन-पोषण और इन सबके लिए स्वयं को मिटा देने की प्रवृत्ति, प्राकृतिक और स्त्रियोचित गुणों का परिणाम है।

दिए गए गद्यांश के लिए उपयुक्त शीर्षक का चयन कीजिए।

(1) महिला और अशिक्षा

(2) **महिला और कार्य ✔**

(3) महिला और राजनीति

(4) महिला और संगीत

Q.97

दिए गए गद्यांश के आधार पर निम्नलिखित प्रश्नों के उत्तर दीजिए।
मैं सारे काम करती हूँ, सातों दिन, हर वक्त काम करती हूँ, काम में पिसने (घोर परिश्रम) से यहाँ कोई बचाव नहीं, (एक महिला ने इस प्रश्न का उत्तर दिया)
"तुम क्या काम करती हो?" और मेरी पत्नी कोई काम नहीं करती, वह घर पर है, (एक पुरुष ने इस प्रश्न का उत्तर दिया)
"तुम्हारी पत्नी क्या काम करती है ?" यह दो प्रत्युत्तर जाति,वर्ग, सीमा से परे महिलाओं की काम की जटिल प्रकृति का सूचक है। वास्तव में महिलाओं के कार्य ने समाज को संपोषित किया है। महिलाएं गृहस्थी के लिए दौड़ती हैं, बच्चों का पालन -पोषण करती हैं, बीमार और बुजुर्गों की चिंता करती हैं, खेती पर और कारखानों में कठिन परिश्रम करती हैं।
महिलाएं दफ़्तर, खेती ,कारखानों में काम पर दिखती हैं पर अधिकतर समय उनके व्यस्त हाथों को सामाजिक परिवेश की वजह से लोग महत्त्व नहीं देते। उनके कार्यों और योगदान को समाज यह मानकर चलता है कि परिवार की बेहतरी और उसको बनाए रखने का उनका योगदान, समाज-परिवार के लिए उनकी चिंता, पारिवारिक सदस्यों का पालन-पोषण और इन सबके लिए स्वयं को मिटा देने की प्रवृत्ति, प्राकृतिक और स्त्रियोचित गुणों का परिणाम है।

"तुम क्या काम करती हो?" प्रश्न के सन्दर्भ में महिला का कौन-सा कथन असत्य है ?

(1) काम में पिसने से यहाँ कोई बचाव नहीं है ।

(2) **मैं कोई काम नहीं करती हूँ । ✔**

(3) सातों दिन ,हर वक्त काम करती हूँ ।

(4) मैं सारे काम करती हूँ ।

QuickSarkari.com | WhatsApp Channel | Telegram: t.me/quick_sarkari

Q.98

दिए गए गद्यांश के आधार पर निम्नलिखित प्रश्नों के उत्तर दीजिए।
मैं सारे काम करती हूँ, सातों दिन, हर वक्त काम करती हूँ, काम में पिसने (घोर परिश्रम) से यहाँ कोई बचाव नहीं, (एक महिला ने इस प्रश्न का उत्तर दिया)
"तुम क्या काम करती हो?" और मेरी पत्नी कोई काम नहीं करती, वह घर पर है, (एक पुरुष ने इस प्रश्न का उत्तर दिया)
"तुम्हारी पत्नी क्या काम करती है ?" यह दो प्रत्युत्तर जाति,वर्ग, सीमा से परे महिलाओं की काम की जटिल प्रकृति का सूचक है। वास्तव में महिलाओं के कार्य ने समाज को संपोषित किया है। महिलाएं गृहस्थी के लिए दौड़ती हैं, बच्चों का पालन -पोषण करती हैं, बीमार और बुजुर्गों की चिंता करती हैं, खेती पर और कारखानों में कठिन परिश्रम करती हैं।
महिलाएं दफ़्तर, खेती ,कारखानों में काम पर दिखती हैं पर अधिकतर समय उनके व्यस्त हाथों को सामाजिक परिवेश की वजह से लोग महत्त्व नहीं देते। उनके कार्यों और योगदान को समाज यह मानकर चलता है कि परिवार की बेहतरी और उसको बनाए रखने का उनका योगदान, समाज-परिवार के लिए उनकी चिंता, पारिवारिक सदस्यों का पालन-पोषण और इन सबके लिए स्वयं को मिटा देने की प्रवृत्ति, प्राकृतिक और स्त्रियोचित गुणों का परिणाम है।

महिलाओं के कार्य के विषय में कौन-सा कथन असत्य है ?

(1) महिलाएं गृहस्थी के लिए दौड़ती हैं ।
(2) बीमार और बुजुर्गों की चिंता करती हैं ।
(3) **महिलाएं प्रत्येक कार्य से डरती हैं । ✔**
(4) बच्चों का पालन-पोषण करती हैं ।

Q.99

दिए गए गद्यांश के आधार पर निम्नलिखित प्रश्नों के उत्तर दीजिए।
मैं सारे काम करती हूँ, सातों दिन, हर वक्त काम करती हूँ, काम में पिसने (घोर परिश्रम) से यहाँ कोई बचाव नहीं, (एक महिला ने इस प्रश्न का उत्तर दिया)
"तुम क्या काम करती हो?" और मेरी पत्नी कोई काम नहीं करती, वह घर पर है, (एक पुरुष ने इस प्रश्न का उत्तर दिया)
"तुम्हारी पत्नी क्या काम करती है ?" यह दो प्रत्युत्तर जाति,वर्ग, सीमा से परे महिलाओं की काम की जटिल प्रकृति का सूचक है। वास्तव में महिलाओं के कार्य ने समाज को संपोषित किया है। महिलाएं गृहस्थी के लिए दौड़ती हैं, बच्चों का पालन -पोषण करती हैं, बीमार और बुजुर्गों की चिंता करती हैं, खेती पर और कारखानों में कठिन परिश्रम करती हैं।
महिलाएं दफ़्तर, खेती ,कारखानों में काम पर दिखती हैं पर अधिकतर समय उनके व्यस्त हाथों को सामाजिक परिवेश की वजह से लोग महत्त्व नहीं देते। उनके कार्यों और योगदान को समाज यह मानकर चलता है कि परिवार की बेहतरी और उसको बनाए रखने का उनका योगदान, समाज-परिवार के लिए उनकी चिंता, पारिवारिक सदस्यों का पालन-पोषण और इन सबके लिए स्वयं को मिटा देने की प्रवृत्ति, प्राकृतिक और स्त्रियोचित गुणों का परिणाम है।

वाक्य में प्रयुक्त 'पत्नी' का पर्यायवाची शब्द होगा -

(1) **कलत्र ✔**
(2) आपगा
(3) रजनीपति
(4) वसुधा

Q.100

दिए गए गद्यांश के आधार पर निम्नलिखित प्रश्नों के उत्तर दीजिए।
मैं सारे काम करती हूँ, सातों दिन, हर वक्त काम करती हूँ, काम में पिसने (घोर परिश्रम) से यहाँ कोई बचाव नहीं, (एक महिला ने इस प्रश्न का उत्तर दिया)
"तुम क्या काम करती हो?" और मेरी पत्नी कोई काम नहीं करती, वह घर पर है, (एक पुरुष ने इस प्रश्न का उत्तर दिया)
"तुम्हारी पत्नी क्या काम करती है ?" यह दो प्रत्युत्तर जाति,वर्ग, सीमा से परे महिलाओं की काम की जटिल प्रकृति का सूचक है। वास्तव में महिलाओं के कार्य ने समाज को संपोषित किया है। महिलाएं गृहस्थी के लिए दौड़ती हैं, बच्चों का पालन -पोषण करती हैं, बीमार और बुजुर्गों की चिंता करती हैं, खेती पर और कारखानों में कठिन परिश्रम करती हैं।
महिलाएं दफ़्तर, खेती ,कारखानों में काम पर दिखती हैं पर अधिकतर समय उनके व्यस्त हाथों को सामाजिक परिवेश की वजह से लोग महत्त्व नहीं देते। उनके कार्यों और योगदान को समाज यह मानकर चलता है कि परिवार की बेहतरी और उसको बनाए रखने का उनका योगदान, समाज-परिवार के लिए उनकी चिंता, पारिवारिक सदस्यों का पालन-पोषण और इन सबके लिए स्वयं को मिटा देने की प्रवृत्ति, प्राकृतिक और स्त्रियोचित गुणों का परिणाम है।

गद्यांश में प्रयुक्त 'जटिल' का विलोम शब्द होगा -

(1) मरण
(2) पराजय
(3) चेतन
(4) **सरल ✔**

Assistant Teacher (Nursery)

Q.101 Which of the following individual differences includes the 'rate of muscular movement'?
निम्नलिखित में से किस वैयक्तिक भिन्नता में 'पेशीय गति की दर' शामिल है?

(1) Emotional Differences / संवेगात्मक भिन्नताएँ
(2) **Differences in Motor Ability / गामक (मोटर) क्षमता में भिन्नताएँ ✔**
(3) Differences in Achievement / उपलब्धि में भिन्नताएँ
(4) Mental Difference / मानसिक भिन्नता

Q.102 What are the key components of a balanced literacy framework?
संतुलित साक्षरता रूपरेखा के प्रमुख घटक क्या हैं?

(1) Artistic creation, musical performance and sports training / कलात्मक सृजन, संगीत प्रदर्शन और खेलकूद प्रशिक्षण
(2) Historical research, scientific exploration and mathematical problem-solving / ऐतिहासिक अनुसंधान, वैज्ञानिक अन्वेषण और गणितीय समस्या-समाधान
(3) Economic analysis, political science and sociology / आर्थिक विश्लेषण, राजनीति विज्ञान और समाजशास्त्र
(4) **Phonemic awareness, phonics instruction, reading fluency, vocabulary and comprehension / स्वनिमिक (Phonemic) जागरूकता, स्वनिक अनुदेश (phonics instruction), पठन प्रवाह, शब्दावली और बोध ✔**

Q.103 At which stage of language development do children begin to form simple sentences by combining two or three words, often leaving out less important words (e.g., "want cookie")?
भाषा विकास के किस चरण में बच्चे दो या तीन शब्दों को मिलाकर सरल वाक्य बनाना शुरू करते हैं, तथा प्रायः कम महत्वपूर्ण शब्दों को छोड़ देते हैं (जैसे, "कुकी चाहिए")?

(1) Holophrastic stage / बहुसंश्लेषणात्मक चरण (Holophrastic stage)
(2) Cooing / किलकना (Cooing)
(3) Babbling / बबलाना (Babbling)
(4) **Telegraphic stage / टेलीग्राफिक चरण (Telegraphic stage) ✔**

Q.104 What is the primary focus of education for children in the zero stage of literacy?

साक्षरता के शून्य चरण में बच्चों के लिए शिक्षा का प्राथमिक केंद्र क्या है?

(1) Learning to analyse and interpret texts / पाठों का विश्लेषण और व्याख्या करना सीखना

(2) **Developing awareness of sounds in spoken language / बोली जाने वाली भाषा में ध्वनियों के प्रति जागरूकता विकसित करना ✔**

(3) Increasing vocabulary through extensive reading / विस्तृत पठन के माध्यम से शब्दावली में वृद्धि

(4) Writing research papers / अनुसंधान पत्र लिखना

Q.105 Why is it important to provide young children with opportunities to look at pictures, read them and talk about them?

छोटे बच्चों को चित्र देखने, पढ़ने और उनके संबंध में बात करने के अवसर प्रदान करना क्यों महत्वपूर्ण है?

(1) To help them remember the names of objects in the pictures / उन्हें चित्रों में वस्तुओं के नाम स्मरण करने में सहायता करने के लिए

(2) **To gradually develop their understanding of visual representation and perspective / दृश्य निरूपण और परिप्रेक्ष्य की उनकी समझ को धीरे-धीरे विकसित करने के लिए ✔**

(3) To teach them drawing techniques at an early age / उन्हें कम आयु में ही चित्रकारी की तकनीक सिखाने के लिए

(4) To improve their eyesight by looking at pictures repeatedly / चित्रों को बार-बार देखने से उनकी दृष्टि में सुधार करने के लिए

Q.106 To promote numeracy, what should teachers focus on?

गणना (numeracy) को बढ़ावा देने के लिए, शिक्षकों को किस पर संकेंद्रित होना चाहिए?

(1) **Hands-on experiences / व्यावहारिक ज्ञान (Hands-on experiences) ✔**

(2) Theoretical explanation / सैद्धांतिक व्याख्या (Theoretical explanation)

(3) Complex vocabulary / जटिल शब्दावली (Complex vocabulary)

(4) Repetition and drills / पुनरावृत्ति और अभ्यास (Repetition and drills)

Q.107 Which of the following is NOT a part of early language development?

निम्नलिखित में से कौन-सा प्रारंभिक भाषा विकास का हिस्सा नहीं है?

(1) Symbol recognition / चिह्न की पहचान (Symbol recognition)

(2) **Grammar analysis / व्याकरण विश्लेषण (Grammar analysis) ✔**

(3) Oral interaction / मौखिक अंत:क्रिया (Oral interaction)

(4) Phonemic awareness / स्वनिमिक जागरूकता (Phonemic awareness)

Q.108 How can the outdoor environment be used to promote learning?

अधिगम को बढ़ावा देने के लिए बाह्य वातावरण का उपयोग किस प्रकार किया जा सकता है?

(1) Classroom arrangement / कक्षा की व्यवस्था

(2) **By providing opportunities for exploration and discovery / अन्वेषण एवं खोज के अवसर प्रदान करके ✔**

(3) By restricting children's movement and activity / बच्चों के संचलन एवं गतिविधि को प्रतिबंधित करके

(4) By ignoring the outdoor space / बाह्य स्थान की उपेक्षा करके

Q.109 What does a girl child demonstrate when she consistently groups buttons in several sets on the basis of colour?

जब कोई बच्ची कई सेटों में बटनों को लगातार रंग के आधार पर समूहित करती है तो वह क्या प्रदर्शित करती है?

(1) Understanding of counting / गिनती की समझ

(2) Ability to classify on the basis of a single property / एकल गुण (single property) के आधार पर वर्गीकरण करने की क्षमता ✔

(3) Proficiency in multiplication / गुणन में निपुणता

(4) Confusion between attributes / विशेषताओं (attributes) के बीच भ्रम

Q.110 Match the types of language with the examples.

Type of language Example

1. Informative a) "I am very happy to announce my promotion!"
2. Expressive b) "Please close the door while leaving."
3. Directive c) "The Eiffel Tower is located in Paris."

भाषा के प्रकार का उदाहरणों से मिलान कीजिए।

भाषा के प्रकार उदाहरण

1. सूचनात्मक a) "मुझे अपनी पदोन्नति की घोषणा करते हुए बहुत खुशी हो रही है!"
2. अभिव्यंजक b) "कृपया जाते समय दरवाजा बंद कर दें"।
3. निदेशात्मक c) "एफिल टॉवर पेरिस में स्थित है"।

(1) 1-c, 2-a, 3-b ✔

(2) 1-b, 2-a, 3-c

(3) 1-c, 2-b, 3-a

(4) 1-a, 2-b, 3-c

Q.111 In the context of giving recommendation, which of the following sentences is correct?

अनुशंसा देने (giving recommendation) के संदर्भ में, निम्नलिखित में से कौन-सा वाक्य सही है?

(1) He advises us to stay indoors during the storm. ✔

(2) He advised us to stay indoors during the storm.

(3) He advise to stay indoors during the storm.

(4) He advising us to stay indoors during the storm.

Q.112 From the following, select the correct option regarding the role of display boards in an indoor learning environment.

a) To display children's work.

b) To beautify the room.

निम्नलिखित में से, इनडोर अधिगम परिवेश में डिस्प्ले बोर्ड (display boards) की भूमिका के संदर्भ में सही विकल्प का चयन कीजिए।

a) बच्चों के कार्य को प्रदर्शित करना।

b) कक्ष को सुंदर बनाना।

(1) Option b is correct, a is incorrect. / विकल्प b सही है, a गलत है।

(2) Option a is correct, b is incorrect. / विकल्प a सही है, b गलत है।

(3) Options a and b are incorrect. / विकल्प a और b गलत हैं।

(4) Options a and b are correct. / विकल्प a और b सही हैं। ✔

Q.113 Which of the following is the main difference between stuttering and stammering?

स्टटरिंग (stuttering) और स्टैमरिंग (stammering) के बीच मुख्य अंतर निम्नलिखित में से क्या है?

(1) Stuttering is related to emotions, stammering is not. / स्टटरिंग संवेगों से संबंधित है, स्टैमरिंग नहीं।

(2) Stuttering occurs during writing, stammering occurs during speech. / स्टटरिंग लेखन के दौरान होती है, स्टैमरिंग भाषण के समय होती है।

(3) Stuttering is more common in girls, whereas stammering is common in boys. / स्टटरिंग लड़कियों में अधिक सामान्य है, जबकि लड़कों में स्टैमरिंग सामान्य है।

(4) Stuttering involves repetition of sounds; stammering involves long pauses. / स्टटरिंग में ध्वनियों की पुनरावर्ती शामिल है; स्टैमरिंग में दीर्घ विराम शामिल हैं। ✔

Q.114 Environmental studies is considered multidisciplinary because it integrates which of the following combinations?

निम्नलिखित में से किस संयोजन को एकीकृत करने के कारण पर्यावरण अध्ययन को बहुविषयक माना जाता है?

(1) Only technological interventions for the management of renewable resources / नवीकरणीय संसाधनों के प्रबंधन हेतु केवल प्रौद्योगिकीय हस्तक्षेप

(2) Scientific, social and humanities-based perspectives to understand environmental issues holistically / पर्यावरणीय मुद्दों को साकल्यवादी ढंग से समझने के लिए वैज्ञानिक, सामाजिक और मानविकी-आधारित परिप्रेक्ष्य ✔

(3) The sole combination of biological and chemical sciences to study environmental pollution / पर्यावरण प्रदूषण का अध्ययन करने के लिए जैविक और रासायनिक विज्ञान का एकमात्र संयोजन

(4) Political ideologies along with physical sciences to control natural disasters / प्राकृतिक आपदाओं को नियंत्रित करने के लिए भौतिक विज्ञान के साथ राजनीतिक विचारधाराएँ

Q.115 Which of the following is NOT a benefit of having age-appropriate equipment and learning materials?

निम्नलिखित में से कौन-सा, आयु-उपयुक्त उपकरण और अधिगम सामग्री होने का लाभ नहीं है?

(1) It is in line with the latest trends / नवीनतम प्रवृत्तियों के अनुरूप होता है ✔

(2) It supports developmental milestones / विकासात्मक उपलब्धियों को समर्थन प्रदान करता है

(3) It ensures the safety of children / बच्चों की सुरक्षा सुनिश्चित करता है

(4) It increases children's interest / बच्चों की अभिरुचि को बढ़ाता है

Q.116 Which of the following options helps young children learn about their environment?

निम्नलिखित में से कौन-सा विकल्प छोटे बच्चों को अपने पर्यावरण के बारें में जानने में सहायता करता है?

(1) Watching TV alone / अकेले टीवी देखना

(2) Exploring nature outdoors / बाहरी क्षेत्र में प्रकृति का अन्वेषण करना ✔

(3) Listening to music without discussion / बिना चर्चा के संगीत सुनना

(4) Sitting quietly indoors / घर के अंदर शांतिपूर्वक बैठना

Q.117 A child consistently struggles to estimate quantities. Which of the following underlying cognitive skills may be weak?

एक बच्चा लगातार मात्राओं का प्राक्कलन करने में संघर्ष करता है। निम्नलिखित में से कौन-सा अंतर्निहित संज्ञानात्मक कौशल दुर्बल हो सकता है?

(1) Spatial reasoning and pattern recognition / स्थानिक तर्क और प्रतिरूप पहचान

(2) Number sense and mental math / संख्या बोध और मानसिक गणित ✔

(3) Vocabulary development / शब्दावली विकास

(4) Fine motor skills / सूक्ष्म गत्यात्मक कौशल

Q.118 Which of the following are essential components of mathematical reasoning?
a. Making conjectures
b. Not justifying thinking process
c. Following logical steps
d. Arriving at conclusion without justification
निम्नलिखित में से कौन-से गणितीय तर्क के आवश्यक घटक हैं?
a. अनुमान लगाना (Making conjectures)
b. चिंतन प्रक्रिया का औचित्य सिद्ध न करना (Not justifying thinking process)
c. तार्किक चरणों का पालन करना (Following logical steps)
d. बिना औचित्य के निष्कर्ष पर पहुंचना (Arriving at conclusion without justification)

(1) b and d / b और d
(2) a and c / a और c ✔
(3) a and b / a और b
(4) b and c / b और c

Q.119 Which of the following activities helps in developing spatial awareness in children?
निम्नलिखित में से कौन-सी गतिविधि, बच्चों में परिवेशी जागरूकता (spatial awareness) विकसित करने में सहायक होती है?

(1) Listening to stories / कहानियां सुनना
(2) Playing with blocks / ब्लॉक के साथ खेलना ✔
(3) Singing nursery rhymes / नर्सरी कविताएं गाना
(4) Reading poems / कविताएं पढ़ना

Q.120 In which process of creativity is self-expression most important?
सृजनात्मकता की किस प्रक्रिया में आत्म-अभिव्यक्ति सबसे महत्वपूर्ण है?

(1) Expression view of creativity / सृजनात्मकता का अभिव्यक्ति दृष्टिकोण ✔
(2) Process view of creativity / सृजनात्मकता का प्रक्रिया दृष्टिकोण
(3) Real view of creativity / सृजनात्मकता का वास्तविक दृष्टिकोण
(4) Product aspect of creativity / सृजनात्मकता का उत्पाद पक्ष

Q.121 Which of the following environmental stimuli is NOT a cause of individual differences?
निम्नलिखित में से कौन-सा पर्यावरण उद्दीपन, वैयक्तिक भिन्नताओं का कारण नहीं है?

(1) Nature of schooling / विद्यालयीकरण की प्रकृति
(2) Interaction with peer group / समसमूह के साथ पारस्परिक क्रिया
(3) Socio-economic status / सामाजिक-आर्थिक स्थिति
(4) Variations in heredity / आनुवंशिकता में विभिन्नताएँ ✔

Q.122 According to NCF 2005, what is considered the basis of learning in Early Childhood Care and Education (ECCE)?
NCF 2005 के अनुसार, प्रारंभिक बाल्यावस्था देखभाल और शिक्षा (ECCE) में अधिगम का आधार क्या माना जाता है?

(1) Discipline / अनुशासन
(2) Examination / परीक्षा
(3) Reading and writing / पठन और लेखन
(4) Play / खेल ✔

Q.123 In pedagogy, what is the full form of CML?

शिक्षाशास्त्र में, CML का पूर्ण रूप क्या है?

(1) Computer Method of Learning / Computer Method of Learning (कंप्यूटर मेथड ऑफ लर्निंग)

(2) Constructivist Mode of Learning / Constructivist Mode of Learning (कंस्ट्रक्टिविस्ट मोड ऑफ लर्निंग)

(3) Collaborated Method of Learning / Collaborated Method of Learning (कोलेबोरेटेड मेथड ऑफ लर्निंग)

(4) Computer Managed Learning / Computer Managed Learning (कंप्यूटर मैनेज्ड लर्निंग) ✔

Q.124 Checklist observation allows teachers to _____.

चेकलिस्ट अवलोकन, शिक्षकों को _____ की सुविधा देता है।

(1) listen passively / निष्क्रिय रूप से सुनने

(2) ignore details / विवरणों को अनदेखा करने

(3) avoid planning / योजना बनाने से बचने

(4) track specific behaviours / विशिष्ट व्यवहारों को ट्रैक करने ✔

Q.125 Which of the following schemes integrates health, nutrition and early learning through Anganwadi centres?

निम्नलिखित में से कौन-सी योजना, आंगनवाड़ी केंद्रों के माध्यम से स्वास्थ्य, पोषण और प्रारंभिक अधिगम को एकीकृत करती है?

(1) National Creche Scheme / राष्ट्रीय क्रेच योजना

(2) National Programme of Nutritional Support / राष्ट्रीय पोषण सहायता कार्यक्रम

(3) Samagra Shiksha Abhiyan / समग्र शिक्षा अभियान

(4) Integrated Child Development Services (ICDS) Scheme / एकीकृत बाल विकास सेवा (ICDS) योजना ✔

Q.126 According to Piaget's theory of cognitive development, which concept refers to a child's ability to understand that objects continue to exist?

पियाजे के संज्ञानात्मक विकास के सिद्धांत के अनुसार, कौन-सी अवधारणा किसी बच्चे की यह समझने की क्षमता को संदर्भित करती है कि वस्तुएं अस्तित्व में बनी रहती हैं?

(1) Conservation / संरक्षण (Conservation)

(2) Egocentrism / अहंकेंद्रवाद (Egocentrism)

(3) Object permanence / वस्तु स्थायित्व (Object permanence) ✔

(4) Assimilation / स्वांगीकरण (Assimilation)

Q.127 What do we say if women's pictures are used for cooking in all the pictures of cooking in all the text books of a particular class?

यदि किसी विशेष कक्षा की सभी पाठ्यपुस्तकों में खाना पकाने के सभी चित्रों में खाना पकाने के लिए महिलाओं के चित्रों का उपयोग किया गया हो, तो हम इसे क्या कहेंगे?

(1) Societal acceptance / सामाजिक स्वीकृति

(2) Gender role / लैंगिक भूमिका

(3) Employment oriented / रोज़गार उन्मुख

(4) Gender stereotype / लैंगिक रूढ़िबद्धता ✔

Q.128 What distinguishes short-term planning from long-term planning in ECCE?

ECCE में अल्पकालिक नियोजन को, दीर्घकालिक नियोजन से क्या पृथक करता है?

(1) It is only for the administrator. / यह केवल ऐडमिनिस्ट्रेटर (administrator) के लिए है।

(2) It includes only assessment methods. / इसमें केवल आकलन विधियां (assessment methods) शामिल हैं।

(3) **It addresses the needs and interests of each child. / यह प्रत्येक बच्चे की आवश्यकताओं और रुचियों को संबोधित करता है। ✔**

(4) It focuses on the annual budget. / यह वार्षिक बजट पर केंद्रित है।

Q.129 The purpose of assessment in early childhood is mainly to identify _____.

a. behavioural changes, attitudes and skills

b. children who need additional support

c. abilities in literacy and numeracy

d. teacher-child-peer interaction

प्रारंभिक बाल्यावस्था में आकलन का उद्देश्य मुख्य रूप से _____ की पहचान करना है।

a. व्यवहारिक परिवर्तन, अभिवृत्ति और कौशल

b. अतिरिक्त सहायता की आवश्यकता वाले बच्चों

c. साक्षरता और गणना में क्षमता

d. शिक्षक-बालक-सहपाठी अंतःक्रिया

(1) Only a and b / केवल a और b

(2) a, b and c / a, b और c

(3) Only b and c / केवल b और c

(4) **a, b and d / a, b और d ✔**

Q.130 The advantage of using a rating scale in observation is _____.

अवलोकन में रेटिंग स्केल का उपयोग करने का लाभ _____ है।

(1) providing detailed information / विस्तृत जानकारी प्रदान करना

(2) reducing bias / अभिनति को कम करना

(3) **facilitating objective recording / वस्तुनिष्ठ रिकॉर्डिंग की सुविधा देना ✔**

(4) increasing validity / वैधता को बढ़ाना

Q.131 Which of the following should be considered while designing an ECCE curriculum?

ECCE पाठ्यचर्या डिजाइन करते समय निम्नलिखित में से किस पर विचार किया जाना चाहिए?

(1) A rigid, one-size-fits-all approach / दृढ़, सभी के लिए एक समान उपागम पर

(2) Only cognitive development / केवल संज्ञानात्मक विकास पर

(3) Adult-centred learning experiences / वयस्क-केंद्रित अधिगम अनुभव पर

(4) **Characteristics of children in each sub-stage of development / विकास के प्रत्येक उप-चरण में बच्चों की विशेषताओं पर ✔**

Q.132 Historically, ECCE in pre-independence India was greatly influenced by _____.

इतिहास के अनुसार, स्वतंत्रता-पूर्व भारत में ECCE, _____ से अत्यन्त प्रभावित था।

(1) **Maria Montessori / मारिया मोंटेसरी (Maria Montessori) ✔**

(2) Rukmani Arundale / रुक्मणि अरुंडेल (Rukmani Arundale)

(3) Tara Bai Modak / तारा बाई मोदक (Tara Bai Modak)

(4) Annie Besant / एनी बेसेंट (Annie Besant)

Q.133 Which of the following is a disadvantage of inclusive education for children with special needs?
निम्नलिखित में से कौन-सी, विशेष-आवश्यकता वाले बच्चों के लिए समावेशी शिक्षा की हानि है?

(1) It sensitises children and teachers to ensure that they have been discriminated against / बच्चों और शिक्षकों को यह सुनिश्चित करने के लिए संवेदनशील बनाता है कि उनके साथ भेदभाव हुआ है ✔

(2) It sets goals for children in the classroom according to their ability and interest / कक्षा में बच्चों के लिए उनकी क्षमता और रुचि के अनुसार लक्ष्य निर्धारित करता है

(3) It maximises the educational potential of every child / प्रत्येक बच्चे की शैक्षिक क्षमता को अधिकतम करता है

(4) It ensures the right of CWSN to equal educational opportunities in regular schools / नियमित विद्यालयों में समान शैक्षिक अवसरों के लिए CWSN के अधिकार को सुनिश्चित करता है

Q.134 Mahatma Gandhi expected _____.
महात्मा गांधी _____ की अपेक्षा रखते थे।

(1) children to play an influential role in education / बच्चों से शिक्षा में प्रभावशाली भूमिका निभाने

(2) parents to play an important role in education / माता-पिता से शिक्षा में महत्वपूर्ण भूमिका निभाने

(3) relatives to play an important role in education / रिश्तेदारों से शिक्षा में महत्वपूर्ण भूमिका निभाने

(4) teachers to play an influential role in education / शिक्षकों से शिक्षा में प्रभावशाली भूमिका निभाने ✔

Q.135 What is the purpose of evaluating children with diverse abilities?
विविध क्षमताओं वाले बच्चों के मूल्यांकन का उद्देश्य क्या है?

(1) As a means to identify weaknesses / दुर्बलताओं की पहचान करने के एक साधन के रूप में

(2) To rank children according to their scores / बच्चों को उनके प्राप्तांकों के अनुसार रैंकिंग देना

(3) To provide meaningful and continuous feedback to strengthen learning / अधिगम को सुदृढ़ बनाने के लिए सार्थक और निरंतर फीडबैक प्रदान करना ✔

(4) To represent all abilities through a single cumulative grade / सभी क्षमताओं को एक ही संचयी ग्रेड के माध्यम से दर्शाना

Q.136 What is the basic principle of Developmentally Appropriate Practice in ECCE?
ECCE में विकासात्मक रूप से उपयुक्त अभ्यास (Developmentally Appropriate Practice) का मूल सिद्धांत क्या है?

(1) Emphasising rapid progression for all children / सभी बच्चों की तीव्र प्रगति पर बल देना

(2) Using teaching methods and materials age appropriately / शिक्षण विधियों और सामग्रियों का आयु के अनुसार उपयुक्त रूप से उपयोग करना ✔

(3) Teaching above maturation level / परिपक्वता स्तर से ऊपर पढ़ाना

(4) Applying the concept of one-size-fits-all / सभी के लिए एक समान (one-size-fits-all) की अवधारणा लागू करना

Q.137 Two statements are given below. Identify the following statements as true or false.
A) Teachers are expected to address each concept or skill in the curriculum in a variety of ways.
B) Family participation in the learning process of early childhood education is considered irrelevant.
नीचे दो कथन दिए गए हैं। निम्नलिखित कथनों की सत्य या असत्य के रूप में पहचान कीजिए।
A) शिक्षकों से अपेक्षा की जाती है कि वे पाठ्यचर्या में प्रत्येक अवधारणा या कौशल को विविध तरीकों से संबोधित करें।
B) प्रारंभिक बाल्यावस्था शिक्षा की अधिगम प्रक्रिया में परिवार की भागीदारी को अप्रासंगिक माना जाता है।

(1) Both statements A and B are true / कथन A और B दोनों सत्य हैं

(2) Statement A is false, statement B is true / कथन A असत्य है, कथन B सत्य है

(3) Both statements A and B are false / कथन A और B दोनों असत्य हैं

(4) Statement A is true, statement B is false / कथन A सत्य है, कथन B असत्य है ✔

Q.138 What role do educators play in ECCE, according to its principles?

ECCE के सिद्धांतों के अनुसार, ECCE में शिक्षक क्या भूमिका निभाते हैं?

(1) Classroom managers / कक्षा प्रबंधक

(2) Sole decision-makers / एकमात्र निर्णयकर्ता

(3) **Facilitators of learning / अधिगम के सुगमकर्ता ✔**

(4) Test administrators / परीक्षा प्रशासक

Q.139 Pre-primary education in India helps develop the early foundations of educational success. Given below are 3 key important points regarding pre-primary education.

I. Learning colours and numbers

II. Understanding patterns and understanding that printed words carry meaning

III. Helps children in socialisation (sharing and caring) Identify the fourth important point from the options.

भारत में पूर्व-प्राथमिक शिक्षा, शैक्षिक सफलता की प्रारंभिक आधारशिलाओं को विकसित करने में सहायता करती है। नीचे पूर्व-प्राथमिक शिक्षा के संबंध में 3 प्रमुख महत्वपूर्ण बिंदु दिए गए हैं।

I. रंगों और संख्याओं का अधिगम

II. पैटर्न को समझना और यह समझना कि मुद्रित शब्द अर्थपूर्ण होते हैं

III. बच्चों को सामाजिकता (साझा करना और देखभाल करना) में सहायता करती है विकल्पों में से चतुर्थ महत्वपूर्ण बिंदु पहचानिए।

(1) Helps them become creative / उन्हें रचनात्मक बनने में सहायता करती है

(2) Helps children develop good handwriting / बच्चों को अच्छी लिखावट विकसित करने में सहायता करती है

(3) Training children to speak English / बच्चों को अंग्रेजी बोलने का प्रशिक्षण देना

(4) **If a child has any disability or impairment, it can be identified at an early age. / किसी बच्चे में यदि कोई अक्षमता या निःशक्तता है, तो उसकी पहचान कम आयु में की जा सकती है। ✔**

Q.140 Which of the following measures is NOT suitable for successful inclusion at the preschool level?

पूर्व-विद्यालय स्तर पर सफल समावेशन के लिए निम्नलिखित में से कौन-सा उपाय उपयुक्त नहीं है?

(1) The physical environment of the centre must be barrier free. / केंद्र का भौतिक वातावरण बाधा-मुक्त होना चाहिए।

(2) The curriculum must be flexible and accessible. / पाठ्यचर्या लचीली और सुलभ होनी चाहिए।

(3) The assessment and evaluation procedures should be made flexible. / आकलन और मूल्यांकन प्रक्रियाओं को लचीला बनाया जाना चाहिए।

(4) **The classrooms must have steps to improve their motor skills. / कक्षाओं में उनके गामक कौशल को सुधारने के लिए सीढ़ियाँ होनी चाहिए। ✔**

Q.141 Which of the following statements are true or false?

Statement 1: Age-appropriate yoga activities have no effect on the concentration ability of the learner.

Statement 2: Yoga activities help learners become more aware of their thoughts and feelings.

निम्नलिखित में से कौन-से कथन सत्य हैं या असत्य हैं?

कथन 1: आयु-उपयुक्त योग गतिविधियों का शिक्षार्थी की एकाग्रता क्षमता पर कोई प्रभाव नहीं पड़ता है।

कथन 2: योग गतिविधियाँ शिक्षार्थियों को अपने विचारों और भावनाओं के प्रति अधिक सचेत करने में सहायता करती हैं।

(1) Statement 1 is true and statement 2 is false. / कथन 1 सत्य है और कथन 2 असत्य है।

(2) **Statement 1 is false and statement 2 is true. / कथन 1 असत्य है और कथन 2 सत्य है। ✔**

(3) Both the statements are false. / दोनों कथन असत्य हैं।

(4) Both the statements are true. / दोनों कथन सत्य हैं।

Q.142 Which of the following is considered material for imaginative or dramatic play?

निम्नलिखित में से किसे काल्पनिक या नाटकीय खेल की सामग्री माना जाता है?

(1) Flash cards / फ़्लैश कार्ड

(2) **Dolls, kitchen sets, masks / गुड़िया, किचन सेट, मुखौटे ✔**

(3) Sound boxes / ध्वनि बॉक्स

(4) Beads and thread / मोती और धागा

Q.143 Which of the following is the first step while giving rescue breaths to an infant?

शिशु को बचाव श्वास (rescue breaths) देते समय निम्नलिखित में से कौन-सा पहला चरण है?

(1) **Place your mouth over the infant's nose and mouth and seal tightly / अपना मुँह शिशु की नाक और मुँह पर रखें और कसकर बंद करें ✔**

(2) Give two small puffs of air / हवा के दो छोटे-छोटे झोंके दें

(3) Reposition and try again for breaths / स्थिति बदलें और फिर से साँस के लिए कोशिश करें

(4) Give 30 chest compressions / छाती पर 30 बार दबाव डालें

Q.144 Classify the following as outdoor equipment and indoor equipment. Mark O for outdoor equipment and I for indoor equipment.

a) Sand pit

b) Collage material

c) Jungle-gyms

d) Xylophone

निम्न को बाह्य उपकरण और आंतरिक उपकरण के रूप में वर्गीकृत कीजिए। बाह्य उपकरण के लिए O और आंतरिक उपकरण के लिए I अंकित कीजिए।

a) बालू का गड्ढा (Sand pit)

b) कोलाज सामग्री (Collage material)

c) जंगल-जिम (Jungle-gyms)

d) ज़ाइलोफ़ोन (Xylophone)

(1) **a - O, b - I, c - O, d - I ✔**

(2) a - I, b - O, c - O, d - O

(3) a - O, b - O, c - I, d - O

(4) a - I, b - O, c - I, d - O

Q.145 In what chronological order do the following physiological functions usually occur from birth to adulthood?

i) Providing energy for work and maintenance of body heat

ii) Providing material for the growth of the body

iii) Providing material for the repair of damaged cells and tissues of our body

iv) Building the material required for reproduction

निम्नलिखित शरीरक्रियात्मक प्रकार्य, प्रायः जन्म से वयस्कता तक किस कालानुक्रमिक क्रम में होते हैं?

i) कार्य करने और शारीरिक ऊष्मा संधारण के लिए ऊर्जा प्रदान करना

ii) शरीर की वृद्धि के लिए सामग्री प्रदान करना

iii) हमारे शरीर की क्षतिग्रस्त कोशिकाओं और ऊतकों की मरम्मत के लिए सामग्री प्रदान करना

iv) जनन के लिए आवश्यक सामग्री का निर्माण करना

(1) i, ii, iii, iv

(2) i, iii, ii, iv

(3) **ii, i, iii, iv ✔**

(4) ii, iii, i, iv

Q.146 What type of play is essential for developing social skills?

सामाजिक कौशल विकसित करने के लिए किस प्रकार के खेल आवश्यक हैं?

(1) Cooperative play / सहयोगशील खेल (Cooperative play) ✔

(2) Parallel play / समानांतर खेल (Parallel play)

(3) Solitary play / एकांतिक खेल (Solitary play)

(4) Competitive play / प्रतियोगी खेल (Competitive play)

Q.147 The brain development of children is influenced not only by health, nutrition and quality of care, but also by another important factor. Identify the fourth factor.

बच्चों के मस्तिष्क का विकास न केवल स्वास्थ्य, पोषण और देखभाल की गुणवत्ता से प्रभावित होता है, बल्कि एक और महत्वपूर्ण कारक से भी प्रभावित होता है। चतुर्थ कारक की पहचान कीजिए।

(1) Psycho-social environment / मनो-सामाजिक परिवेश ✔

(2) Religious background / धार्मिक पृष्ठभूमि

(3) Geographical conditions / भौगोलिक परिस्थितियाँ

(4) Linguistic ability of parents / माता-पिता की भाषाई क्षमता

Q.148 To improve and promote the foundation of learning early language, literacy and _____, the "Padhe Bharat, Badhe Bharat" scheme was launched by the Government of India in 2014. From the given options, identify the third foundation for learning.

प्रारंभिक भाषा, साक्षरता और _____ के अधिगम के आधार को बेहतर बनाने और बढ़ावा देने के लिए, भारत सरकार द्वारा 2014 में "पढ़े भारत, बढ़े भारत" योजना शुरू की गई थी। दिए गए विकल्पों में से, अधिगम के लिए तीसरे आधार की पहचान कीजिए।

(1) Local language / स्थानीय भाषा

(2) Science / विज्ञान

(3) Environmental studies / पर्यावरण अध्ययन

(4) Numeracy / गणना ✔

Q.149 The National Early Childhood Care and Education Policy 2013 aims to achieve, for children below _____ of age, _____ and active learning capacity.

राष्ट्रीय प्रारंभिक बाल्यावस्था देखभाल एवं शिक्षा नीति 2013 का उद्देश्य _____ से कम आयु के बच्चों के लिए _____ तथा सक्रिय अधिगम क्षमता प्राप्त करना है।

(1) 1-2 months; complete care of newborns / 1-2 माह; नवजात शिशुओं की संपूर्ण देखभाल

(2) 6 years; holistic development / 6 वर्ष; समग्र विकास ✔

(3) 8 years; physical development / 8 वर्ष; शारीरिक विकास

(4) 3 years; affordable health care and nutrition / 3 वर्ष; सस्ती स्वास्थ्य देखभाल और पोषण

Q.150 What type of observations can teachers make?

शिक्षक किस प्रकार का अवलोकन कर सकते हैं?

(1) Subjective and biased observations / व्यक्तिपरक और पक्षपाती अवलोकन

(2) Spontaneous and planned observations / स्वतःस्फूर्त और योजनाबद्ध अवलोकन ✔

(3) Irregular and rare observations / अनियमित और दुर्लभ अवलोकन

(4) Medical and psychological observations / चिकित्सा और मनोवैज्ञानिक अवलोकन

Q.151 In present-day India, to ensure the optimal development of all children, there is a need to create a well-planned _____ that includes developmentally appropriate knowledge and skills and has _____ for the contextual and diverse needs of young children.

वर्तमान भारत में, सभी बच्चों के इष्टतम विकास को सुनिश्चित करने हेतु, एक सुनियोजित _____ बनाने की आवश्यकता है, जिसमें विकासात्मक रूप से उपयुक्त ज्ञान और कौशल शामिल हों तथा जिसमें युवा बच्चों की संदर्भगत और विविध आवश्यकताओं के लिए _____हो।

(1) curriculum framework; flexibility / पाठ्यचर्या की रूपरेखा; नम्यता (curriculum framework; flexibility) ✔

(2) syllabus; rigidity / पाठ्यक्रम; अनम्यता (syllabus; rigidity)

(3) concepts; variation / संकल्पनाएं; विभिन्नता (concepts; variation)

(4) content; flexible / विषयवस्तु; नम्यता (content; flexible)

Q.152 In an ECCE centre, the outdoor facilities _____.

ECCE केंद्र में, आउटडोर खेल परिसर (Outdoor facilities), _____।

(1) should be equipped with valuable play material / मूल्यवान खेल सामग्री से सुसज्जित होने चाहिए

(2) should be as large as possible / यथासंभव बड़े होने चाहिए

(3) should be such that students get opportunities to use their imagination and creativity / ऐसे होने चाहिए जिनमें विद्यार्थियों को उनकी कल्पना और रचनात्मकता का उपयोग करने के अवसर मिलें ✔

(4) should be completely covered with lawn / पूरी तरह से लॉन से ढकी होने चाहिए

Q.153 Children of 5-12 years understand rules and therefore like _____.

5-12 वर्ष के बच्चे नियमों को समझते हैं और इसलिए _____ पसंद करते हैं।

(1) colour matching games / कलर मैचिंग गेम्स

(2) riding a tricycle / तिपहिया साइकिल चलाना

(3) games like football and basketball / फुटबॉल और बास्केटबॉल जैसे खेल ✔

(4) playing with kneaded clay or dough / गुंथी हुई मिट्टी या आटे से खेलना

Q.154 Which of the following is NOT an essential characteristic of developmentally appropriate play material?

विकासात्मक रूप से उपयुक्त क्रीड़ा सामग्री का आवश्यक अभिलक्षण निम्नलिखित में से क्या नहीं है?

(1) Easily accessible / आसानी से अभिगम्य

(2) Safe and hygienic / सुरक्षित और स्वच्छ

(3) In sufficient quantity / पर्याप्त मात्रा में

(4) Dangerous and challenging / खतरनाक और चुनौतीपूर्ण ✔

Q.155 ECCE has contributed positively to the long-term development and learning of children.
Why has ECCE chosen children below 6 years of age as its priority?

ECCE ने बच्चों के दीर्घकालिक विकास और अधिगम में सकारात्मक योगदान दिया है।
ECCE ने, अपनी प्राथमिकता के रूप में 6 वर्ष से कम आयु के बच्चों को क्यों चुना है?

(1) Because it is necessary to bring children into a friendly social environment in addition to the family environment / क्योंकि बच्चों को पारिवारिक परिवेश के अतिरिक्त मैत्रीपूर्ण सामाजिक परिवेश में लाना आवश्यक होता है

(2) Because children need formal education from an early age / क्योंकि बच्चों को प्रारंभिक आयु से ही औपचारिक शिक्षा की आवश्यकता होती है

(3) Because the human brain grows at a rapid pace after birth and becomes stable after the age of 6 years / क्योंकि मानव मस्तिष्क जन्म के बाद तीव्र गति से वृद्धि करता है और 6 वर्ष की आयु के बाद स्थिर हो जाता है ✔

(4) Because the desired linguistic and artistic skills have to be developed in children at an early age and they have to be prepared for future competitions / क्योंकि बच्चों में प्रारंभिक आयु में ही वांछित भाषाई और कलात्मक कौशल विकसित करना और उन्हें भविष्य की प्रतियोगिताओं के लिए तैयार करना होता है

Q.156 In an ECCE setting, which of the given options can be considered essential for properly recording observations of children's behaviour?

ECCE व्यवस्थापन में, बच्चों के व्यवहार के अवलोकन को उचित रूप से अभिलेखित करने के लिए, दिए गए विकल्पों में से कौन-सा विकल्प अनिवार्य माना जा सकता है?

(1) Documenting observations in a systematic and organised manner / व्यवस्थित और संगठित तरीके से अवलोकनों का प्रलेखन करना ✔

(2) Observing without taking any notes / बिना कोई नोट (notes) लिए अवलोकन करना

(3) Recording only negative behaviour / केवल नकारात्मक व्यवहार का अभिलेखन करना

(4) Using only audio recording / केवल ध्वनि अभिलेखन का उपयोग करना

Q.157 What is the role of imagination in a child's play?

बच्चे के खेल में कल्पना की क्या भूमिका है?

(1) To develop motor skills / गामक कौशल विकसित करना

(2) To create a fantasy world / एक काल्पनिक दुनिया बनाना ✔

(3) To develop mathematical skills / गणितीय कौशल विकसित करना

(4) To replicate real-life scenarios / वास्तविक जीवन की परिस्थितियों की नकल करना

Q.158 In early childhood education, which of the following is the primary goal of planning?

प्रारंभिक बाल्यावस्था शिक्षा में, योजना का प्राथमिक लक्ष्य निम्नलिखित में से क्या होता है?

(1) Creating a learning-friendly environment for holistic development / समग्र विकास के लिए अधिगम लायक वातावरण तैयार करना ✔

(2) Structuring activities for academic achievement / शैक्षणिक उपलब्धि के लिए क्रियाकलापों को संरचित करना

(3) Preparing children for competitive examinations / बच्चों को प्रतियोगी परीक्षाओं के लिए तैयार करना

(4) Ensuring that children follow a strict routine / यह सुनिश्चित करना कि बच्चे एक सख्त दिनचर्या का अनुसरण करें

Q.159 What type of materials should be given priority in ECCE centres?

ECCE केंद्रों में किस प्रकार की सामग्री को प्राथमिकता दी जानी चाहिए?

(1) Multipurpose and adaptable materials / बहुउद्देश्यीय और अनुकूलनीय सामग्रियों को ✔

(2) Unsupervised digital devices / अपर्यवेक्षित डिजिटल उपकरणों को

(3) Imported and expensive materials / आयातित और महंगी सामग्रियों को

(4) Adult training materials / वयस्क प्रशिक्षण की सामग्रियों को

Q.160 A musical instrument made by making holes in two coconut shells, passing a string through them and tying knots at both its ends is called _____.

नारियल के दो खोलों में छिद्र करके उनमें से एक डोरी निकाल कर और उसके दोनों सिरों पर गाँठें लगाकर एक वाद्य यंत्र बनाया जाता है, जिसे _____ कहा जाता है।

(1) cymbals / झाँझ (cymbals)

(2) rattles / रैटल (rattles)

(3) drum / ड्रम (drum)

(4) jhunjuna / झुनझुना (jhunjuna) ✔

Q.161 The teacher can use _____ to share observations about the child's abilities and potentialities to the parents so that they know, understand and accept the child as he/she is.

शिक्षक बच्चे की क्षमताओं और संभावनाओं के बारे में अवलोकनों को माता-पिता के साथ साझा करने के लिए _____ का उपयोग कर सकता है, ताकि वे बच्चे को जैसा वह है, वैसा ही जान सकें, समझ सकें और स्वीकार कर सकें।

(1) misbehaviour records / दुर्व्यवहार अभिलेख

(2) **anecdotal records / उपाख्यानात्मक अभिलेख ✔**

(3) progress reports / प्रगति रिपोर्ट

(4) report cards / रिपोर्ट कार्ड

Q.162 Children learn by doing and engaging in a variety of activities because:

बच्चे विभिन्न प्रकार की गतिविधियों को करके और उनमें संलग्न होकर सीखते हैं, क्योंकि:

(1) **Cognitive development is sequential / संज्ञानात्मक विकास अनुक्रमिक होता है ✔**

(2) Physical development is sequential / शारीरिक विकास अनुक्रमिक होता है

(3) Growth is sequential / वृद्धि अनुक्रमिक होती है

(4) Children love to play / बच्चों को खेलना पसंद है

Q.163 Which methods of resource mobilisation are recommended for an ECCE centre?

ECCE केंद्र के लिए संसाधन संग्रहण के कौन-से तरीके अनुशंसित हैं?

(1) Only government funding / केवल सरकारी वित्तपोषण

(2) Use of bank loans / बैंक ऋण का उपयोग

(3) Only private funding / केवल निजी वित्तपोषण

(4) **Community participation and involvement / सामुदायिक भागीदारी एवं सहभागिता ✔**

Q.164 Why is it important for play material to be sturdy and well designed?

खेल सामग्री का दृढ़ और अच्छी तरह से डिज़ाइन किया जाना क्यों महत्वपूर्ण है?

(1) To match the decoration of the centre / केंद्र की सजावट से सुमेलन के लिए

(2) **To ensure that they last for a long time and withstand regular use / यह सुनिश्चित करने के लिए कि वे लंबे समय तक और नियमित उपयोग में टिकें रहें ✔**

(3) To reduce their weight / उनका भार कम करने के लिए

(4) To make them attractive / उन्हें आकर्षक बनाने के लिए

Q.165 What is the primary objective of planning a programme in an ECCE centre?

ECCE केंद्र में किसी कार्यक्रम की योजना बनाने का प्राथमिक उद्देश्य क्या है?

(1) To inform the school management / विद्यालय प्रबंधन को सूचित करना

(2) To keep children busy throughout the day / बच्चों को दिन भर व्यस्त रखना

(3) To write in the student diary and impress the parents / विद्यार्थी डायरी में लिखना और अभिभावकों को प्रभावित करना

(4) **To support children's development and learning / बच्चों के विकास और अधिगम में सहायता करना ✔**

Q.166 Striving for continuous improvement in _____ to meet the requirements and demands of the early childhood profession is a key quality of ECCE teachers.

प्रारंभिक बाल्यावस्था पेशे की आवश्यकताओं और मांगों को पूरा करने के लिए _____ में निरंतर सुधार के लिए प्रयास करना ईसीसीई (ECCE) शिक्षकों का एक प्रमुख गुण है।

(1) **knowledge and skills / ज्ञान और कौशल ✔**

(2) teaching and training / शिक्षण और प्रशिक्षण

(3) learning and experience / अधिगम और अनुभव

(4) qualification and certification / योग्यता और प्रमाणन

Q.167 Which of the following is NOT recommended as a strategy to communicate with parents in ECCE settings?

ECCE परिवेश में माता-पिता के साथ संप्रेषण करने की रणनीति के रूप में निम्नलिखित में से किसकी अनुशंसा नहीं की जाती है?

(1) Home Visits / गृह भ्रमण

(2) Parent-Teacher Meeting / अभिभावक-शिक्षक बैठक

(3) **Newspapers / समाचार पत्र ✔**

(4) Newsletters / न्यूज़लेटर

Q.168 It can be stated that _____ is the aim for project/inquiry-based approach.

यह कहा जा सकता है कि परियोजना/पूछताछ-आधारित उपागम का उद्देश्य _____ है।

(1) combined study / संयुक्त अध्ययन

(2) **self-learning / स्व-अधिगम ✔**

(3) independent study / स्वतंत्र अध्ययन

(4) play method / खेल विधि

Q.169 How does keeping children engaged and redirecting them help in maintaining safety?

बच्चों को व्यस्त रखना और उन्हें पुनः निर्देशित करना सुरक्षा बनाए रखने में किस प्रकार सहायक होता है?

(1) By minimising adult intervention / वयस्कों के हस्तक्षेप को न्यूनतम करके

(2) By giving them strict instructions about what to do / उन्हें क्या करना है, इस बारे में सख्त निर्देश देकर

(3) **By keeping their attention focused on safe and appropriate activities / उनका ध्यान सुरक्षित और उचित गतिविधियों पर केंद्रित रखके ✔**

(4) By letting them resolve their conflicts themselves / उन्हें अपने संघर्षों को स्वयं सुलझाने देकर

Q.170 Match the following geometric concepts with the appropriate activities.

1. Understanding shapes a. Using a ruler
2. Measuring length b. Playing with shape sorters
3. Recognising patterns c. Filling and emptying containers
4. Understanding volume d. Creating bead necklaces

निम्नलिखित ज्यामितीय अवधारणाओं का उपयुक्त गतिविधियों से मिलान कीजिए।

1. आकृतियों को समझना a. रूलर का उपयोग करना
2. लंबाई मापना b. आकृति छाँटने वाले खिलौनों (shape sorters) से खेलना
3. पैटर्न को पहचानना c. पात्रों को भरना और खाली करना
4. आयतन को समझना d. मोतियों के हार बनाना

(1) 1-d, 2-c, 3-b, 4-a

(2) 1-a, 2-b, 3-c, 4-d

(3) **1-b, 2-a, 3-d, 4-c ✔**

(4) 1-c, 2-d, 3-a, 4-b

QuickSarkari.com | WhatsApp Channel | Telegram: t.me/quick_sarkari

Q.171 Two statements are given below. Select the option that correctly identifies which of these statements are true/false.
A. Differentiated instruction can include planning different activities for small groups of children.
B. Planning should not include the arrangement of classroom displays related to the lesson.
नीचे दो कथन दिए गए हैं। उस विकल्प का चयन कीजिए जो सही ढंग से यह पहचान करता है कि इनमें से कौन- से कथन सत्य/असत्य हैं।
A. विभेदीकृत अनुदेशन में बच्चों के छोटे समूहों के लिए अलग-अलग गतिविधियों का नियोजन शामिल हो सकता है।
B. नियोजन में पाठ से संबंधित कक्षा प्रदर्शनों की व्यवस्था को शामिल नहीं किया जाना चाहिए।

(1) Both statements A and B are true / कथन A और B दोनों सत्य हैं
(2) **Statement A is true, but statement B is false / कथन A सत्य है, परन्तु कथन B असत्य है ✔**
(3) Statement A is false, but statement B is true / कथन A असत्य है, परन्तु कथन B सत्य है
(4) Both statements A and B are false / कथन A और B दोनों असत्य हैं

Q.172 In pedagogical approaches recommended for early childhood education, when knowledge is imparted to the students in terms of academic concepts, the teacher can make use of _____.
प्रारंभिक बाल्यावस्था शिक्षा के लिए अनुशंसित शिक्षणशास्त्रीय उपागमों में, जब विद्यार्थियों को शैक्षणिक अवधारणाओं के रूप में ज्ञान प्रदान किया जाता है, तो शिक्षक _____ का उपयोग कर सकता है।

(1) writing activities / लेखन गतिविधियों
(2) **play activities / खेल गतिविधियों ✔**
(3) laboratory method / प्रयोगशाला विधि
(4) research method / अनुसंधान विधि

Q.173 Which of the following is considered an essential component of the teaching process?
निम्नलिखित में से किसे शिक्षण प्रक्रिया का एक अनिवार्य घटक माना जाता है?

(1) **Communication and interaction / संप्रेषण और अंतःक्रिया ✔**
(2) Obedience of the student / विद्यार्थी की आज्ञाकारिता
(3) Authority of the teacher / शिक्षक का प्राधिकार
(4) Only completing the syllabus / केवल पाठ्यक्रम पूरा कराना

Q.174 Which of the following is NOT a component of human resources in an ECCE centre?
ECCE केंद्र में मानव संसाधन का घटक, निम्नलिखित में से कौन नहीं है?

(1) ECCE helper / ECCE सहायक
(2) **Family of the ECCE worker / ECCE कार्यकर्ता का परिवार ✔**
(3) Parents of the children / बच्चों के माता-पिता
(4) ECCE worker / ECCE कार्यकर्ता

Q.175 In which activities does a child need to be involved to develop his speaking skills and oral expression?
बच्चे को अपने वाचन कौशल और मौखिक अभिव्यक्ति विकसित करने के लिए, किन गतिविधियों में शामिल होने की आवश्यकता होती है?

(1) Physical, field-based and social activities / शारीरिक, क्षेत्र-आधारित और सामाजिक गतिविधियां
(2) Sound discrimination, auditory span, auditory comprehension / ध्वनि भेदन, श्रवण अवधि, श्रवण बोध
(3) Fine muscle development, eye-hand coordination, letter recognition / सूक्ष्म मांसपेशी विकास, नेत्र और हाथ का समन्वय, अक्षर बोध
(4) **Conversation, storytelling, dramatisation / वार्तालाप, कहानी सुनाना, नाटकीकरण ✔**

Q.176 Which of the following is essential for effective communication?

निम्नलिखित में से कौन-सा, प्रभावी संप्रेषण के लिए आवश्यक है?

(1) Kinesics / गतिकी (Kinesics)

(2) **Mutual interest / पारस्परिक अभिरुचि (Mutual interest) ✔**

(3) Mutual trust / पारस्परिक विश्वास (Mutual trust)

(4) Proxemics / सामीप्यकी (Proxemics)

Q.177 The Reggio Emilia approach emphasises _____ learning, which allows the child to use all his senses and all his languages for learning.

रेजियो एमिलिया (Reggio Emilia) दृष्टिकोण, _____ अधिगम पर बल देता है, जो अधिगम के लिए बच्चे को अपनी सभी इंद्रियों और अपनी सभी भाषाओं का उपयोग करने की अनुमति देता है।

(1) observational / प्रेक्षणमूलक (observational)

(2) fictional / काल्पनिक (fictional)

(3) directed / निर्देशित (directed)

(4) **hands-on discovery / प्रायोगिक खोज (hands-on discovery) ✔**

Q.178 It can be stated that activity-based learning approach is regarded as one of the approaches, which promotes _____ skills.

यह कहा जा सकता है कि गतिविधि-आधारित अधिगम उपागम को उन उपागमों में से एक माना जाता है, जो _____ कौशल को बढ़ावा देता है।

(1) **analytical / विश्लेषणात्मक ✔**

(2) memorising / याद करने के

(3) learning / अधिगम

(4) writing / लेखन

Q.179 Match the toys and materials with the appropriate age group.

1. Old tyres a) 0 to 2 years
2. Big balls b) 2 to 4 years
3. Swings like slide, merry-go-round c) 10 years
4. Board games d) 4 to 6 years

खिलौनों एवं सामग्रियों का मिलान उचित आयु वर्ग से कीजिए।

1. पुराने टायर a) 0 से 2 वर्ष
2. बड़ी गेंदें b) 2 से 4 वर्ष
3. स्लाइड, मैरी गो राउंड जैसे झूले c) 10 वर्ष
4. बोर्ड गेम d) 4 से 6 वर्ष

(1) **1 - b, 2 - a, 3 - d, 4 - c ✔**

(2) 1 - a, 2 - d, 3 - b, 4 - c

(3) 1 - d, 2 - c, 3 - b, 4 - a

(4) 1 - c, 2 - d, 3 - a, 4 - b

Q.180 Piaget's stage of games with rules usually begins in the age range of _____.

नियमों के साथ खेलों के पियाजे के चरण समान्यतः आयु सीमा _____ से शुरू होता है।

(1) **7-11 years / 7-11 वर्ष ✔**

(2) 0-2 years / 0-2 वर्ष

(3) 11-15 years / 11-15 वर्ष

(4) 2-7 years / 2-7 वर्ष

QuickSarkari.com | WhatsApp Channel | Telegram: t.me/quick_sarkari

Q.181 Which assessment method can be used by a teacher to identify a child with a communication disorder?

संप्रेषण विकार (communication disorder) वाले बच्चे की पहचान करने के लिए शिक्षक द्वारा किस आकलन विधि का उपयोग किया जा सकता है?

(1) IQ test / IQ परीक्षण

(2) Observation / अवलोकन

(3) Interview / साक्षात्कार

(4) **Physical examination and observation / शारीरिक परीक्षण और अवलोकन ✔**

Q.182 Identify the role of teacher in the given example. The teacher should _____. The teacher is seen as a facilitator. She arranges the environment and prepares activities and experiences appropriate to the developmental level of the children in the class.

दिए गए उदाहरण में शिक्षक की भूमिका की पहचान कीजिए। शिक्षक को _____ चाहिए।
शिक्षक को एक सुगमकर्ता के रूप में देखा जाता है। वह वातावरण की व्यवस्था करती है और कक्षा के बच्चों के विकासात्मक स्तर के अनुरूप गतिविधियाँ और अनुभव तैयार करती है।

(1) **provide 'Discovery Learning' opportunity / 'खोज द्वारा अधिगम' (Discovery Learning) का अवसर प्रदान करना ✔**

(2) direct children what they need to do / बच्चों को निर्देश देना कि उन्हें क्या करना है

(3) be engaged in preparing for the next class / अगली कक्षा की तैयारी में व्यस्त रहना

(4) not possess any role in the classroom / कक्षा में कोई भूमिका नहीं रखनी

Q.183 Gender roles are learnt through which of the following?

लिंग भूमिकाएं (Gender roles) निम्नलिखित में से किसके माध्यम से सीखी जाती हैं?

(1) hormonal changes / हार्मोनल परिवर्तन (hormonal changes)

(2) physical development / शारीरिक विकास (physical development)

(3) **social interaction / सामाजिक संपर्क (social interaction) ✔**

(4) genetic inheritance / आनुवंशिक वंशागति (genetic inheritance)

Q.184 ECE programmes help parents understand that _____.

ई.सी.ई.(ECE) कार्यक्रम माता-पिता को यह समझने में मदद करते हैं कि _____ ।

(1) reading and writing should be taught strictly in childhood / बचपन में पढ़ना-लिखना सख्ती से सिखाया जाना चाहिए

(2) **imposing academic education too early can be harmful / बहुत जल्दी शैक्षणिक शिक्षा थोपना नुकसानदेह हो सकता है ✔**

(3) homework should be given daily / होमवर्क रोज़ाना दिया जाना चाहिए

(4) the burden of curriculum in preschool should be increased / प्रीस्कूल में पाठ्यक्रम का बोझ बढ़ाया जाना चाहिए

Q.185 Who is a 'juvenile delinquent'?

'बालापराधी (juvenile delinquent)' कौन होता है?

(1) A person with low socio-economic status / निम्न समाजर्थिक अवस्था वाला व्यक्ति

(2) A person with better motor ability and mild stuttering / बेहतर गत्यात्मकता क्षमता और अल्प स्टटरिंग (stuttering) वाला व्यक्ति

(3) **A person who commits a crime below the age of 18 years / 18 वर्ष से निम्न आयु में अपराध करने वाला व्यक्ति ✔**

(4) A person with hyperactive, impulsive reactions to depression and expulsion / अवसाद और निष्कासन के प्रति अतिसक्रिय, आवेगी प्रतिक्रियाओं वाला व्यक्ति

Q.186 According to ECE programmes, who is considered the first teacher of a child?

ई.सी.ई. (ECE) कार्यक्रमों के अनुसार, बच्चे का प्रथम शिक्षक किसे माना जाता है?

(1) Community Members / समुदाय के सदस्य (Community Members)

(2) Parents / अभिभावक (Parents) ✔

(3) School Teachers / स्कूल शिक्षक (School Teachers)

(4) Anganwadi Workers / आंगनवाड़ी कार्यकर्ता (Anganwadi Workers)

Q.187 According to Jean Piaget's theory of cognitive development, the formation of complex ideas takes place during the _____ stage.

जीन पियाजे के संज्ञानात्मक विकास के सिद्धांत के अनुसार, जटिल विचारों का निर्माण _____ चरण के दौरान होता है।

(1) sensorimotor / संवेदी-पेशीय

(2) concrete operational / मूर्त संक्रियात्मक

(3) pre-operational / पूर्व-संक्रियात्मक

(4) formal operational / औपचारिक संक्रियात्मक ✔

Q.188 Children master using their arms before their hands and they develop control over their fingers much later, because:

बच्चे अपने हाथों (हथेलियों) से पहले अपनी भुजाओं का उपयोग करने में निपुण हो जाते हैं और अपनी उँगलियों पर नियंत्रण बहुत बाद में विकसित करते हैं, क्योंकि:

(1) rate of growth varies from organ to organ / वृद्धि की दर एक अंग से दूसरे अंग में भिन्न होती है

(2) growth is sequential / वृद्धि अनुक्रमिक होती है

(3) development proceeds from central to peripheral parts, referred as near to far sequence / विकास केंद्रीय से परिधीय भागों की ओर अग्रसर होता है, जिसे निकट से दूर का अनुक्रम कहा जाता है ✔

(4) development proceeds from upper part of the body to the lower part of the body / विकास शरीर के ऊपरी भाग से शरीर के निचले भाग की ओर अग्रसर होता है

Q.189 What is autism?

स्वलीनता (ऑटिज़्म) क्या है?

(1) Language processing disorder / भाषा प्रसंस्करण विकार

(2) Neurological or brain disorder / तंत्रिका संबंधी या मस्तिष्क विकार ✔

(3) Ability to deal with abstract and symbolic materials is very limited / अमूर्त और प्रतीकात्मक सामग्रियों से निपटने की क्षमता बहुत सीमित होती है

(4) Decreased cognitive growth / संज्ञानात्मक वृद्धि में कमी

Q.190 From the following, identify the non-negotiable facilities which must be made available to children at an ECCE centre.

निम्नलिखित में से, उन अनिवार्य (non-negotiable) सुविधाओं की पहचान कीजिए जो ECCE केंद्र में बच्चों को अवश्य उपलब्ध कराई जानी चाहिए।

(1) Low noise level / निम्न शोर स्तर

(2) Transport facility / परिवहन सुविधा

(3) Structurally safe building and within easy approach / संरचनात्मक रूप से सुरक्षित भवन और आसान पहुँच के भीतर ✔

(4) Located in residential area / आवासीय क्षेत्र में स्थित

Q.191 Children's ability to transition successfully to a pre-school depends upon _____.

बच्चों की पूर्व-विद्यालय में सफलतापूर्वक संक्रमण (transition) करने की क्षमता _____ पर निर्भर करती है।

(1) the distance from the home / घर से दूरी

(2) **their own personal characteristics such as temperament and personality / उनकी अपनी वैयक्तिक विशेषताओं जैसे स्वभाव और व्यक्तित्व ✔**

(3) the reputation of the institution / संस्थान की प्रतिष्ठा

(4) the size of the institution / संस्थान के आकार

Q.192 Match the following learning disabilities with their related problems.

Learning disability Related problems

I. Dysgraphia

a. Problem in fine and gross motor skills

II. Dyslexia

b. Difficulty with numbers and arithmetic

III. Dyscalculia

c. Problem in reading

IV. Dyspraxia

d. Problem in writing

निम्नलिखित अधिगम अक्षमताओं और उनसे संबंधित समस्याओं का मिलान कीजिए।

अधिगम अक्षमता संबंधित समस्याएं

I. डिसग्राफिया (Dysgraphia)

a. सूक्ष्म और स्थूल पेशीय कौशल में समस्या

II. डिस्लेक्सिया (Dyslexia)

b. संख्याओं और अंकगणित में कठिनाई

III. डिस्कैलकुलिया (Dyscalculia)

c. पढ़ने में समस्या

IV. डिस्प्रैक्सिया (Dyspraxia)

d. लिखने में समस्या

(1) I-b, II-a, III- d, IV-c

(2) I-d, II-a, III-b, IV-c

(3) **I-d, II-c, III-b, IV-a ✔**

(4) I-a, II-d, III-b, IV-c

Q.193 Family members are a source of information for the preschool teacher _____.

परिवार के सदस्य _____, पूर्वस्कूली शिक्षक के लिए जानकारी का स्रोत होते हैं।

(1) by describing the child's temper tantrums at home / घर पर बच्चे के क्रोधावेशों का वर्णन करके

(2) **by communicating their observations regarding the continuous development of their child / अपने बच्चे के निरंतर विकास के संबंध में अपनें अवलोकनों को सूचित करके ✔**

(3) by advising him/her to be civil and kind / उसे सभ्य और दयालु बनने की सलाह देकर

(4) by requesting to teach them a specific poem / उन्हें एक विशिष्ट कविता सिखाने का अनुरोध करके

Q.194 Brain development is a continuous process and it begins _____.

मस्तिष्क का विकास एक सतत प्रक्रिया है और यह _____ शुरू होती है।

(1) after birth / जन्म के बाद से

(2) **before birth / जन्म के पहले से ✔**

(3) in childhood / बाल्यावस्था में

(4) in adolescence / किशोरावस्था में

Q.195 Which activity best represents improvement in gross motor development?
कौन-सी गतिविधि सकल गत्यात्मक-विकास में सुधार का सबसे अच्छा निरूपण करती है?

(1) Printing letters / अक्षर छापना (Printing letters)
(2) **Climbing stairs / सीढ़ियाँ चढ़ना (Climbing stairs) ✔**
(3) Tying shoelaces / जूते के फीते बाँधना (Tying shoelaces)
(4) Building block towers / ब्लॉक टावर बनाना (Building block towers)

Q.196 Synaptic pruning is a process that occurs in the development of the brain. It involves _____.
सिनैप्टिक प्रूनिंग (Synaptic pruning) एक प्रक्रिया है जो मस्तिष्क के विकास में होती है। इसमें _____ शामिल है।

(1) weakening of synapses / सिनैप्स का कमज़ोर होना
(2) strengthening of synapses / सिनैप्स का मज़बूत होना
(3) **removal of unused synapses / अप्रयुक्त सिनैप्स को हटाया जाना ✔**
(4) formation of synapses / सिनैप्स का निर्माण

Q.197 Synaptic pruning is the process that occurs in the _____.
सिनैप्टिक प्रूनिंग (Synaptic pruning) वह प्रक्रिया है जो _____ में होती है।

(1) muscles / पेशियों
(2) kidney / वृक्क
(3) **brain / मस्तिष्क ✔**
(4) heart / हृदय

Q.198 Which of the following approaches is recommended for teaching hearing-impaired children?
श्रवण बाधित बच्चों को पढ़ाने के लिए निम्नलिखित में से कौन-सा उपागम अनुशंसित है?

(1) Using only written instructions / केवल लिखित निर्देशों का उपयोग करना
(2) **Using gestures, lip reading and facial expressions / हाव-भाव, लिप रीडिंग और चेहरे के भावों का उपयोग करना ✔**
(3) Emphasising oral lectures / मौखिक व्याख्यानों पर ज़ोर देना
(4) Avoiding visual material / दृश्य सामग्री से बचना

Q.199 How will the teacher identify a 'slow learner' in the class?
शिक्षक कक्षा में 'मंद अधिगमकर्ता' की पहचान कैसे करेगा?

(1) **Observation and case study / अवलोकन और व्यक्ति अध्ययन ✔**
(2) Interaction with friends / मित्रों के साथ अंतःक्रिया
(3) Psychological tests / मनोवैज्ञानिक परीक्षण
(4) While doing activity in the class / कक्षा में गतिविधि करते समय

Q.200 Which of the following are essential components of cognitive development?
निम्नलिखित में से कौन-से संज्ञानात्मक विकास के आवश्यक घटक हैं?

(1) **Attention, Perception, Memory, Reasoning / ध्यान, प्रत्यक्षण, स्मृति, तर्कशक्ति ✔**
(2) Learning, Social Behaviour, Formal Education / अधिगम, सामाजिक व्यवहार, औपचारिक शिक्षा
(3) Informal Education, Locomotion, Interaction / अनौपचारिक शिक्षा, गमन, अंतःक्रिया
(4) Reasoning, Climbing, Running / तर्कशक्ति, चढ़ना, दौड़ना

Answer Key / उत्तर कुंजी

1	2	3	4	5	6	7	8	9	10	11	12	13	14	15
3	3	1	1	4	1	4	1	2	2	4	3	2	2	3

16 3	**17** 2	**18** 3	**19** 4	**20** 3	**21** 4	**22** 3	**23** 4	**24** 1	**25** 2	**26** 4	**27** 4	**28** 1	**29** 3	**30** 1
31 4	**32** 3	**33** 4	**34** 1	**35** 3	**36** 1	**37** 1	**38** 3	**39** 4	**40** 1	**41** 1	**42** 1	**43** 3	**44** 1	**45** 1
46 1	**47** 2	**48** 2	**49** 1	**50** 3	**51** 4	**52** 4	**53** 3	**54** 4	**55** 1	**56** 1	**57** 1	**58** 2	**59** 4	**60** 2
61 2	**62** 3	**63** 3	**64** 4	**65** 2	**66** 2	**67** 4	**68** 4	**69** 2	**70** 4	**71** 4	**72** 3	**73** 3	**74** 2	**75** 3
76 2	**77** 3	**78** 3	**79** 1	**80** 1	**81** 2	**82** 4	**83** 2	**84** 4	**85** 4	**86** 3	**87** 2	**88** 2	**89** 2	**90** 2
91 1	**92** 3	**93** 3	**94** 1	**95** 3	**96** 2	**97** 2	**98** 3	**99** 1	**100** 4	**101** 2	**102** 4	**103** 4	**104** 2	**105** 2
106 1	**107** 2	**108** 2	**109** 2	**110** 1	**111** 1	**112** 4	**113** 4	**114** 2	**115** 1	**116** 2	**117** 2	**118** 2	**119** 2	**120** 1
121 4	**122** 4	**123** 4	**124** 4	**125** 4	**126** 3	**127** 4	**128** 3	**129** 4	**130** 3	**131** 4	**132** 1	**133** 1	**134** 4	**135** 3
136 2	**137** 4	**138** 3	**139** 4	**140** 4	**141** 2	**142** 2	**143** 1	**144** 1	**145** 3	**146** 1	**147** 1	**148** 4	**149** 2	**150** 2
151 1	**152** 3	**153** 3	**154** 4	**155** 3	**156** 1	**157** 2	**158** 1	**159** 1	**160** 4	**161** 2	**162** 1	**163** 4	**164** 2	**165** 4
166 1	**167** 3	**168** 2	**169** 3	**170** 3	**171** 2	**172** 2	**173** 1	**174** 2	**175** 4	**176** 2	**177** 4	**178** 1	**179** 1	**180** 1
181 4	**182** 1	**183** 3	**184** 2	**185** 3	**186** 2	**187** 4	**188** 3	**189** 2	**190** 3	**191** 2	**192** 3	**193** 2	**194** 2	**195** 2
196 3	**197** 3	**198** 2	**199** 1	**200** 1										

Quick Sarkari

DSSSB Exam August 2025

Participant ID	
Participant Name	
Test Center Name	iON Digital Zone iDZ 1 Sector 62
Test Date	12/08/2025
Test Time	1:00 PM - 3:00 PM
Subject	Assistant Teacher Nursery

Section : **General intelligence and Reasoning Ability**

Q.1 एक निश्चित कूट भाषा में, 'CLUB' को '1364' के रूप में और 'LUCK' को '4169' के रूप में कूटबद्ध किया जाता है। दी गई कूट भाषा में 'K' का कूट क्या है?

Ans
✗ 1. 6
✗ 2. 4
✓ 3. 9
✗ 4. 1

Question ID : **441009839436**
Option 1 ID : **4410093310815**
Option 2 ID : **4410093310814**
Option 3 ID : **4410093310812**
Option 4 ID : **4410093310813**

Q.2 निम्नलिखित अक्षर और प्रतीक श्रृंखला का संदर्भ लीजिए और नीचे दिए गए प्रश्न का उत्तर दीजिए। गिनती केवल बाएँ से दाएँ की जानी है।

(बाएँ) C T % D A @ U G R Ω Y # $ K Ω E * £ B (दाएँ)

यदि श्रृंखला से सभी अक्षर हटा दिए जाएं, तो निम्नलिखित में से कौन-सा बाएं से तीसरा होगा?

Ans
✗ 1. $
✗ 2. %
✓ 3. Ω
✗ 4. @

Question ID : **441009838918**
Option 1 ID : **4410093308741**
Option 2 ID : **4410093308740**
Option 3 ID : **4410093308743**
Option 4 ID : **4410093308742**

QuickSarkari.com | WhatsApp Channel | Telegram: t.me/quick_sarkari

Q.3 एक निश्चित कूट भाषा में,
'A + B' का अर्थ है, कि 'A, B की बहन है',
'A – B' का अर्थ है, कि 'A, B का भाई है',
'A x B' का अर्थ है, कि 'A, B की पत्नी है',
'A ÷ B' का अर्थ है, कि 'A, B का पिता है'।

यदि 'L + M – N x O ÷ P' है, तो L का P से क्या संबंध है?

Ans ✔ 1. माता की बहन

✘ 2. पिता की बहन

✘ 3. माता की माता

✘ 4. पिता की माता

Question ID : **441009982334**
Option 1 ID : **4410093881802**
Option 2 ID : **4410093881804**
Option 3 ID : **4410093881803**
Option 4 ID : **4410093881805**

Q.4 एक निश्चित कूट भाषा में, 'SILK' को '8619' के रूप में और 'RISK' को '6928' के रूप में कूटबद्ध किया जाता है। दी गई कूट भाषा में 'R' का कूट क्या है?

Ans ✔ 1. 2

✘ 2. 8

✘ 3. 9

✘ 4. 6

Question ID : **441009839438**
Option 1 ID : **4410093310820**
Option 2 ID : **4410093310822**
Option 3 ID : **4410093310823**
Option 4 ID : **4410093310821**

Q.5 निम्नलिखित समीकरण को सही बनाने के लिए किन दो संख्याओं को परस्पर बदला जाना चाहिए?
(नोट: संपूर्ण संख्या को परस्पर बदला जाना चाहिए, न कि दी गई संख्या के अलग-अलग अंकों को।)

(20 ÷ 4) × 6 + 44 – 36 + (40 ÷ 5) = 72

Ans ✘ 1. 44 और 36

✘ 2. 44 और 20

✘ 3. 36 और 20

✔ 4. 20 और 40

Question ID : **441009980629**
Option 1 ID : **4410093874997**
Option 2 ID : **4410093874996**
Option 3 ID : **4410093874994**
Option 4 ID : **4410093874995**

QuickSarkari.com | WhatsApp Channel | Telegram: t.me/quick_sarkari

Q.6 सात बॉक्स J, K, L, M, W, X और Y एक के ऊपर एक रखे गए हैं लेकिन जरूरी नहीं कि वे इसी क्रम में रखे गए हों। X के नीचे केवल दो बॉक्स रखे गए हैं। W के ऊपर केवल एक बॉक्स रखा गया है। W और Y के बीच केवल एक बॉक्स रखा गया है। J को L के ठीक ऊपर रखा गया है। K को M के नीचे किसी स्थान पर रखा गया है। M और J के बीच कितने बॉक्स रखे गए हैं?

Ans
✔ 1. चार
✘ 2. एक
✘ 3. तीन
✘ 4. दो

Question ID : **44100912415**
Option 1 ID : **44100949453**
Option 2 ID : **44100949450**
Option 3 ID : **44100949452**
Option 4 ID : **44100949451**

Q.7 अंग्रेजी वर्णमाला क्रम के आधार पर, निम्नलिखित चार अक्षर-समूह युग्मों में से तीन एक निश्चित तरीके से समान हैं और इस प्रकार एक ग्रुप बनाते हैं। निम्नलिखित में से वह कौन-सा अक्षर-समूह युग्म है, जो उस ग्रुप से संबंधित नहीं है?
(नोट: असंगत अक्षर-समूह युग्म, व्यंजनों/स्वरों की संख्या या उनकी स्थिति पर आधारित नहीं है।)

Ans
✘ 1. JB-EX
✘ 2. VN-QJ
✘ 3. SK-NG
✔ 4. OG-CJ

Question ID : **441009839423**
Option 1 ID : **4410093310762**
Option 2 ID : **4410093310763**
Option 3 ID : **4410093310760**
Option 4 ID : **4410093310761**

Q.8 दिए गए कथनों और निष्कर्षों का ध्यानपूर्वक अध्ययन कीजिए। यह मानते हुए कि कथनों में दी गई जानकारी सत्य है, भले ही वह सामान्यतः ज्ञात तथ्यों से भिन्न प्रतीत होती हो, तय कीजिए कि दिए गए निष्कर्षों में से कौन-सा/से निष्कर्ष कथनों का तार्किक रूप से अनुसरण करता है/करते हैं।

कथन:
कुछ घोंघे, कीड़े हैं।
कुछ कीड़े, सरीसृप हैं।
सभी मछलियाँ, घोंघे हैं।

निष्कर्ष:
(I) कुछ मछलियाँ, कीड़े हैं।
(II) कुछ सरीसृप, घोंघे हैं।

Ans
✔ 1. न तो निष्कर्ष (I) और न ही (II) अनुसरण करता है।
✘ 2. केवल निष्कर्ष (I) अनुसरण करता है।
✘ 3. निष्कर्ष (I) और (II) दोनों अनुसरण करते हैं।
✘ 4. केवल निष्कर्ष (II) अनुसरण करता है।

Question ID : **441009982382**
Option 1 ID : **4410093881997**
Option 2 ID : **4410093881994**
Option 3 ID : **4410093881996**
Option 4 ID : **4410093881995**

Q.9 एक निश्चित तरीके से HG 16 का संबंध OO 4 से है। उसी तरीके से KJ 32 का संबंध RR 8 से है। समान तर्क का अनुसरण करते हुए, SH 36 का संबंध निम्नलिखित में से किससे है?

Ans
✗ 1. YP 8
✓ 2. ZP 9
✗ 3. YP 9
✗ 4. ZP 8

Question ID : **441009982316**
Option 1 ID : **4410093881731**
Option 2 ID : **4410093881730**
Option 3 ID : **4410093881732**
Option 4 ID : **4410093881733**

Q.10 दी गई शृंखला में प्रश्न-चिह्न (?) के स्थान पर क्या आना चाहिए?

18 39 62 87 114 ?

Ans
✗ 1. 112
✓ 2. 143
✗ 3. 104
✗ 4. 116

Question ID : **441009980599**
Option 1 ID : **4410093874877**
Option 2 ID : **4410093874876**
Option 3 ID : **4410093874875**
Option 4 ID : **4410093874874**

Q.11 सात मित्र A, B, C, D, E, F और G, उत्तर दिशा की ओर अभिमुख होकर एक सीधी पंक्ति में बैठे हैं। E और G पंक्ति के छोरों पर बैठे हैं। F, E के ठीक दाईं ओर पड़ोस में और C के ठीक बाईं ओर पड़ोस में बैठा है। D, G के ठीक बाईं ओर पड़ोस में बैठा है। B, D के ठीक बाईं ओर पड़ोस में बैठा है। पंक्ति के बाएँ छोर से चौथे स्थान पर कौन बैठा है?

Ans
✗ 1. D
✗ 2. B
✗ 3. C
✓ 4. A

Question ID : **441009982347**
Option 1 ID : **4410093881856**
Option 2 ID : **4410093881854**
Option 3 ID : **4410093881857**
Option 4 ID : **4410093881855**

Q.12 उस विकल्प आकृति का चयन करें जो पैटर्न को पूरा करने के लिए नीचे दी गई आकृति में प्रश्न-चिह्न (?) को प्रतिस्थापित करेगी।

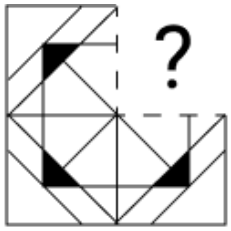

Ans

✗ 1. 

✗ 2. 

✓ 3. 

✗ 4. 

Question ID : **441009989234**
Option 1 ID : **4410093909234**
Option 2 ID : **4410093909235**
Option 3 ID : **4410093909233**
Option 4 ID : **4410093909236**

Q.13 H, I, J, K, W, X और Y एक गोल मेज के परितः केंद्र की ओर अभिमुख होकर बैठे हैं। K, X के ठीक बाएं पड़ोस में बैठा है। H, W के ठीक बाएं पड़ोस में बैठा है। W, Y के बाएं दूसरे स्थान पर बैठा है। I, X के बाएं तीसरे स्थान पर बैठा है। J के दाएं तीसरे स्थान पर कौन बैठा है?

Ans
✗ 1. W
✓ 2. X
✗ 3. K
✗ 4. I

Question ID : **44100912412**
Option 1 ID : **44100949440**
Option 2 ID : **44100949441**
Option 3 ID : **44100949439**
Option 4 ID : **44100949438**

QuickSarkari.com | WhatsApp Channel | Telegram: t.me/quick_sarkari

Q.14 निम्नलिखित अक्षर और प्रतीक श्रृंखला का संदर्भ लें और दिए गए प्रश्न का उत्तर दें। गिनती केवल बाएं से दाएं की जानी है।

(बाएं) G R Ω Y # E * £ B U $ K P Q % D @ C # M (दाएं)

यदि श्रृंखला से सभी अक्षर हटा दिए जाएं, तो निम्नलिखित में से कौन-सा बाएं से सातवां होगा?

Ans
✗ 1. %
✓ 2. @
✗ 3. $
✗ 4. Ω

Question ID : **441009838917**
Option 1 ID : **4410093308736**
Option 2 ID : **4410093308738**
Option 3 ID : **4410093308739**
Option 4 ID : **4410093308737**

Q.15 उस युग्म का चयन कीजिए जो नीचे दिए गए दो युग्मों के समूह के समान पैटर्न का अनुसरण करता है। दोनों युग्म समान पैटर्न का अनुसरण करते हैं।

NHA : TCG
ZXM : FSS

Ans
✗ 1. PPH : LSD
✗ 2. VFG : QCB
✓ 3. BRO : HMU
✗ 4. HAR : LVV

Question ID : **441009982301**
Option 1 ID : **4410093881670**
Option 2 ID : **4410093881671**
Option 3 ID : **4410093881672**
Option 4 ID : **4410093881673**

Q.16 अंग्रेजी वर्णमाला क्रम पर आधारित, निम्नलिखित चार अक्षर-समूहों में से तीन एक निश्चित तरीके से समान हैं और इस प्रकार एक ग्रुप बनाते हैं। कौन-सा अक्षर-समूह उस ग्रुप से संबंधित नहीं है?
(नोट: असंगत अक्षर समूह, व्यंजनों/स्वरों की संख्या या उनकी स्थिति पर आधारित नहीं है।)

Ans
✗ 1. GIJ
✗ 2. LNO
✓ 3. ABE
✗ 4. VXY

Question ID : **441009982283**
Option 1 ID : **4410093881601**
Option 2 ID : **4410093881600**
Option 3 ID : **4410093881599**
Option 4 ID : **4410093881598**

QuickSarkari.com | WhatsApp Channel | Telegram: t.me/quick_sarkari

Q.17 सात बक्से A, B, C, D, K, L और M, एक के ऊपर एक रखे गए हैं, लेकिन जरूरी नहीं कि उसी क्रम में रखे हों। केवल B को A के ऊपर रखा गया है। केवल C को A और D के बीच रखा गया है। केवल L को K के नीचे रखा गया है। M और L के बीच कितने बक्से रखे गए हैं?

Ans
✗ 1. दो
✓ 2. एक
✗ 3. तीन
✗ 4. चार

Question ID : **441009839399**
Option 1 ID : **4410093310665**
Option 2 ID : **4410093310664**
Option 3 ID : **4410093310666**
Option 4 ID : **4410093310667**

Q.18 यदि 'D' का अर्थ '÷' है, 'A' का अर्थ '×' है, 'C' का अर्थ '+' है और 'B' का अर्थ '–' है, तो निम्नलिखित समीकरण में प्रश्न-चिह्न (?) के स्थान पर क्या आएगा?

4 A 220 D 11 C 20 B 50 = ?

Ans
✗ 1. 40
✗ 2. 60
✓ 3. 50
✗ 4. 54

Question ID : **441009980639**
Option 1 ID : **4410093875036**
Option 2 ID : **4410093875037**
Option 3 ID : **4410093875034**
Option 4 ID : **4410093875035**

Q.19 दी गई शृंखला में प्रश्न-चिह्न (?) के स्थान पर क्या आना चाहिए?

7 8 16 43 107 ?

Ans
✗ 1. 112
✗ 2. 212
✗ 3. 156
✓ 4. 232

Question ID : **441009980598**
Option 1 ID : **4410093874870**
Option 2 ID : **4410093874873**
Option 3 ID : **4410093874872**
Option 4 ID : **4410093874871**

QuickSarkari.com | WhatsApp Channel | Telegram: t.me/quick_sarkari

Q.20 अमन अपनी कक्षा में शीर्ष से 24वें स्थान पर और नीचे से 12वें स्थान पर है। उसकी कक्षा में कितने विद्यार्थी हैं?

Ans
✗ 1. 34
✗ 2. 33
✓ 3. 35
✗ 4. 36

Question ID : **441009839395**
Option 1 ID : **4410093310649**
Option 2 ID : **4410093310648**
Option 3 ID : **4410093310650**
Option 4 ID : **4410093310651**

Section : **General Awareness**

Q.1 भारत के राष्ट्रपति को किस प्रक्रिया द्वारा पद से हटाया जा सकता है?

Ans
✗ 1. अविश्वास प्रस्ताव
✗ 2. त्यागपत्र
✗ 3. कारावास
✓ 4. महाभियोग

Question ID : **441009973171**
Option 1 ID : **4410093845727**
Option 2 ID : **4410093845726**
Option 3 ID : **4410093845728**
Option 4 ID : **4410093845725**

Q.2 राइनो वायरस मनुष्यों में निम्नलिखित में से कौन-सा संक्रामक रोग पैदा करता है?

Ans
✗ 1. डिप्थीरिया (Diphtheria)
✗ 2. पेचिश (Dysentery)
✓ 3. सर्दी-ज़ुकाम (Common cold)
✗ 4. मलेरिया (Malaria)

Question ID : **4410091050782**
Option 1 ID : **4410094152198**
Option 2 ID : **4410094152197**
Option 3 ID : **4410094152199**
Option 4 ID : **4410094152200**

Q.3 प्रसिद्ध नारा, 'तुम मुझे खून दो, मैं तुम्हें आजादी दूंगा' निम्नलिखित में से किसने दिया था?

Ans
✗ 1. महात्मा गांधी
✗ 2. बाल गंगाधर तिलक
✗ 3. जवाहरलाल नेहरू
✓ 4. सुभाष चंद्र बोस

Question ID : **441009236086**
Option 1 ID : **441009922772**
Option 2 ID : **441009922773**
Option 3 ID : **441009922771**
Option 4 ID : **441009922774**

Q.4 भारत में मध्य पुरापाषाण काल के शल्क उपकरणों की सर्वप्रथम पहचान और अभिलेखन किसने किया था?

Ans ✔ 1. सांकलिया

✘ 2. आर कोरीसेट्टर

✘ 3. जेरोम जैकबसन

✘ 4. अजित प्रसाद

Question ID : **441009972591**
Option 1 ID : **4410093843406**
Option 2 ID : **4410093843405**
Option 3 ID : **4410093843408**
Option 4 ID : **4410093843407**

Q.5 जनगणना 2011 के अनुसार, निम्नलिखित में से किस केंद्र शासित प्रदेश में लिंगानुपात सबसे अधिक था?

Ans ✘ 1. दमन और दीव

✔ 2. पुदुचेरी

✘ 3. चंडीगढ़

✘ 4. लक्षद्वीप

Question ID : **441009974986**
Option 1 ID : **4410093852985**
Option 2 ID : **4410093852988**
Option 3 ID : **4410093852987**
Option 4 ID : **4410093852986**

Q.6 ऑल इंडिया गवर्नर्स गोल्ड कप, 2024, (फुटबॉल), निम्नलिखित में से किस राज्य में आयोजित किया गया था?

Ans ✘ 1. हरियाणा

✘ 2. राजस्थान

✘ 3. उत्तराखंड

✔ 4. सिक्किम

Question ID : **441009228805**
Option 1 ID : **441009894870**
Option 2 ID : **441009894872**
Option 3 ID : **441009894871**
Option 4 ID : **441009894873**

Q.7 निम्नलिखित में से किस अर्थशास्त्री को, अर्थव्यवस्था में समग्र आय और उपभोग के बीच संबंध को स्पष्ट करने वाले सिद्धांत के प्रतिपादन के लिए जाना जाता है?

Ans ✘ 1. एडम स्मिथ

✘ 2. कार्ल मार्क्स

✘ 3. मिल्टन फ्रीडमैन

✔ 4. जॉन मेनार्ड कीन्स

Question ID : **441009974081**
Option 1 ID : **4410093849365**
Option 2 ID : **4410093849367**
Option 3 ID : **4410093849368**
Option 4 ID : **4410093849366**

Q.8 निम्नलिखित में से कौन-सी समिति भारत में गरीबी मापने की पद्धति में अपने महत्वपूर्ण योगदान के लिए जानी जाती है?

Ans
✔ 1. तेंदुलकर समिति
✘ 2. गाडगिल समिति
✘ 3. मल्होत्रा समिति
✘ 4. नरसिंहम समिति

Question ID : **441009974061**
Option 1 ID : **4410093849288**
Option 2 ID : **4410093849286**
Option 3 ID : **4410093849287**
Option 4 ID : **4410093849285**

Q.9 'सभी पूरमों की जननी' के रूप में प्रसिद्ध त्रिशूर पूरम, किस भारतीय राज्य में मनाया जाने वाला एक प्रमुख मंदिर उत्सव है?

Ans
✘ 1. कर्नाटक, मैसूर के दशहरा उत्सवों के लिए प्रसिद्ध
✘ 2. तमिलनाडु, मीनाक्षी मंदिर उत्सवों के लिए प्रसिद्ध
✔ 3. केरल, अपनी जीवंत मंदिर परंपराओं के लिए प्रसिद्ध
✘ 4. आंध्र प्रदेश, तिरुपति मंदिर अनुष्ठानों का केंद्र

Question ID : **441009232903**
Option 1 ID : **441009910044**
Option 2 ID : **441009910043**
Option 3 ID : **441009910045**
Option 4 ID : **441009910046**

Q.10 निम्नलिखित में से किस प्रकार की जलवायु भारत में प्रमुखता से पाई जाती है?

Ans
✔ 1. उष्ण मानसूनी
✘ 2. ध्रुवीय
✘ 3. महाद्वीपीय
✘ 4. भूमध्यसागरीय

Question ID : **441009974999**
Option 1 ID : **4410093853039**
Option 2 ID : **4410093853040**
Option 3 ID : **4410093853037**
Option 4 ID : **4410093853038**

Q.11 वित्त आयोग का गठन भारतीय संविधान के किस अनुच्छेद के अंतर्गत किया जाता है?

Ans
✘ 1. अनुच्छेद 148
✘ 2. अनुच्छेद 315
✘ 3. अनुच्छेद 324
✔ 4. अनुच्छेद 280

Question ID : **441009973173**
Option 1 ID : **4410093845734**
Option 2 ID : **4410093845735**
Option 3 ID : **4410093845736**
Option 4 ID : **4410093845733**

QuickSarkari.com | WhatsApp Channel | Telegram: t.me/quick_sarkari

Q.12 भारत में गरीबी रेखा को परिभाषित करने के लिए निम्नलिखित में से कौन-सा सामान्य उपाय उपयोग किया जाता है?

Ans
✗ 1. रोज़गार की स्थिति
✗ 2. प्रति व्यक्ति आय
✓ 3. उपभोग व्यय
✗ 4. साक्षरता दर

Question ID : **44100973723**
Option 1 ID : **441009293204**
Option 2 ID : **441009293202**
Option 3 ID : **441009293203**
Option 4 ID : **441009293205**

Q.13 'राजभाषा अधिनियम', किस वर्ष पारित किया गया था?

Ans
✗ 1. 1947
✗ 2. 1950
✗ 3. 1986
✓ 4. 1963

Question ID : **441009232632**
Option 1 ID : **441009908959**
Option 2 ID : **441009908960**
Option 3 ID : **441009908962**
Option 4 ID : **441009908961**

Q.14 भारतीय संविधान में संसदीय शासन प्रणाली किस देश से ली गई है?

Ans
✓ 1. यूके (UK)
✗ 2. फ्रांस
✗ 3. जर्मनी
✗ 4. यूएसए (USA)

Question ID : **441009973178**
Option 1 ID : **4410093845754**
Option 2 ID : **4410093845755**
Option 3 ID : **4410093845756**
Option 4 ID : **4410093845753**

Q.15 निम्नलिखित में से कौन-से फ्लोएम अवयव निर्जीव हैं?

Ans
✗ 1. चालनी कोशिकाएँ (Sieve cells)
✗ 2. फ्लोएम पैरेन्काइमा (Phloem parenchyma)
✓ 3. फ्लोएम फाइबर (Phloem fibres)
✗ 4. सहचर कोशिकाएँ (Companion cells)

Question ID : **4410091050777**
Option 1 ID : **4410094152177**
Option 2 ID : **4410094152178**
Option 3 ID : **4410094152180**
Option 4 ID : **4410094152179**

QuickSarkari.com | WhatsApp Channel | Telegram: t.me/quick_sarkari

Q.16 निम्नलिखित में से किस मंत्रालय ने अक्टूबर 2024 में आधिकारिक रूप से पीएम ई-ड्राइव (PM E-DRIVE) योजना प्रारंभ की?

Ans
✔ 1. भारी उद्योग मंत्रालय
✘ 2. आवासन और शहरी कार्य मंत्रालय
✘ 3. सड़क परिवहन एवं राजमार्ग मंत्रालय
✘ 4. इलेक्ट्रॉनिक्स और सूचना प्रौद्योगिकी मंत्रालय

Question ID : **441009228524**
Option 1 ID : **441009893747**
Option 2 ID : **441009893748**
Option 3 ID : **441009893746**
Option 4 ID : **441009893749**

Q.17 1916 में एनी बेसेंट के साथ इंडियन होम रूल लीग की स्थापना किसने की?

Ans
✔ 1. बाल गंगाधर तिलक
✘ 2. महात्मा गांधी
✘ 3. जवाहरलाल नेहरू
✘ 4. गोपाल कृष्ण गोखले

Question ID : **441009236085**
Option 1 ID : **441009922767**
Option 2 ID : **441009922769**
Option 3 ID : **441009922768**
Option 4 ID : **441009922770**

Q.18 2020 में, देवनागरी लिपि में लिखी जाने वाली बोडो भाषा को किस राज्य की सहायक राजभाषा के रूप में अनुमोदित किया गया था?

Ans
✘ 1. त्रिपुरा
✘ 2. मेघालय
✔ 3. असम
✘ 4. पश्चिम बंगाल

Question ID : **441009232669**
Option 1 ID : **441009909107**
Option 2 ID : **441009909110**
Option 3 ID : **441009909108**
Option 4 ID : **441009909109**

Q.19 सितंबर 2024 में, केंद्रीय इलेक्ट्रॉनिक्स और सूचना प्रौद्योगिकी मंत्रालय (MeitY) ने ब्लॉकचेन-एज़-ए-सर्विस (BaaS) का समर्थन करने के लिए किस पहल को प्रारंभ किया?

Ans
✘ 1. नेशनल ब्लॉकचेन इनोवेशन हब (National Blockchain Innovation Hub)
✘ 2. इंडिया ब्लॉकचेन डेवलपमेंट फ्रेमवर्क (India Blockchain Development Framework)
✘ 3. डिजिटल इंडिया ब्लॉकचेन पहल (Digital India Blockchain Initiative)
✔ 4. विश्वस्य-ब्लॉकचेन टेक्नोलॉजी स्टैक (Vishvasya-Blockchain Technology Stack)

Question ID : **441009228357**
Option 1 ID : **441009893081**
Option 2 ID : **441009893080**
Option 3 ID : **441009893079**
Option 4 ID : **441009893078**

Q.20 विश्व का सबसे बड़ा मैंग्रोव वन 'सुंदरबन' भारत के किस राज्य में स्थित है?

Ans ✔ 1. पश्चिम बंगाल

✗ 2. आंध्र प्रदेश

✗ 3. केरल

✗ 4. ओडिशा

Question ID : **441009975006**
Option 1 ID : **4410093853065**
Option 2 ID : **4410093853068**
Option 3 ID : **4410093853067**
Option 4 ID : **4410093853066**

Section : **Arithmetical and Numerical Ability**

Q.1 एक व्यक्ति एक सड़क के अनुदिश 1200 m की दूरी 5 मिनट में दौड़कर तय कर लेता है। उसकी चाल (km/hr में) कितनी है?

Ans ✔ 1. 14.4

✗ 2. 15.0

✗ 3. 12.8

✗ 4. 13.6

Question ID : **441009988248**
Option 1 ID : **4410093905283**
Option 2 ID : **4410093905284**
Option 3 ID : **4410093905281**
Option 4 ID : **4410093905282**

Q.2 रोहित एक निश्चित धनराशि को 20% वार्षिक ब्याज दर पर जमा करता है, जो वार्षिक रूप से संयोजित होती है। 2 वर्षों के अंत में, वह कुल ₹28,188 प्राप्त करता है। रोहित द्वारा जमा की गई धनराशि (₹ में) ज्ञात कीजिए।

Ans ✔ 1. 19,575

✗ 2. 19,109

✗ 3. 19,624

✗ 4. 19,422

Question ID : **441009988173**
Option 1 ID : **4410093904981**
Option 2 ID : **4410093904983**
Option 3 ID : **4410093904984**
Option 4 ID : **4410093904982**

Q.3 नव-वर्ष की सेल के दौरान, एक कंपनी ग्राहकों को '4 स्वेटर खरीदें और 1 मुफ्त पाएं' ऑफर दे रही है। इस सौदे में, छूट का प्रतिशत ज्ञात कीजिए।

Ans
✗ 1. 25%
✗ 2. 22%
✓ 3. 20%
✗ 4. 18%

Question ID : **441009988126**
Option 1 ID : **4410093904796**
Option 2 ID : **4410093904794**
Option 3 ID : **4410093904793**
Option 4 ID : **4410093904795**

Q.4 निम्नलिखित में से कौन-सा अनुपात, सबसे छोटा है?

Ans
✓ 1. 4 : 9
✗ 2. 7 : 12
✗ 3. 1 : 2
✗ 4. 6 : 11

Question ID : **441009988347**
Option 1 ID : **4410093905677**
Option 2 ID : **4410093905680**
Option 3 ID : **4410093905678**
Option 4 ID : **4410093905679**

Q.5 यदि $x : y = 7 : 5$ है, तो $(x^2 + y^2) : (x^2 - y^2)$ ज्ञात कीजिए।

Ans
✓ 1. 37 : 12
✗ 2. 7 : 5
✗ 3. 29 : 20
✗ 4. 5 : 2

Question ID : **441009836302**
Option 1 ID : **4410093298327**
Option 2 ID : **4410093298324**
Option 3 ID : **4410093298325**
Option 4 ID : **4410093298326**

Q.6 आठ संख्याओं का औसत 56 है, और प्रथम सात संख्याओं का औसत 55 है। आठवीं संख्या ज्ञात कीजिए।

Ans
✓ 1. 63
✗ 2. 56
✗ 3. 55
✗ 4. 62

Question ID : **441009988227**
Option 1 ID : **4410093905197**
Option 2 ID : **4410093905198**
Option 3 ID : **4410093905199**
Option 4 ID : **4410093905200**

QuickSarkari.com | WhatsApp Channel | Telegram: t.me/quick_sarkari

Q.7 दिया गया पाई चार्ट एक परिवार द्वारा विभिन्न वस्तुओं पर किए गए व्यय और उनकी बचत को दर्शाता है। पाई चार्ट का ध्यानपूर्वक अध्ययन कीजिए और दिए गए प्रश्न का उत्तर दीजिए।

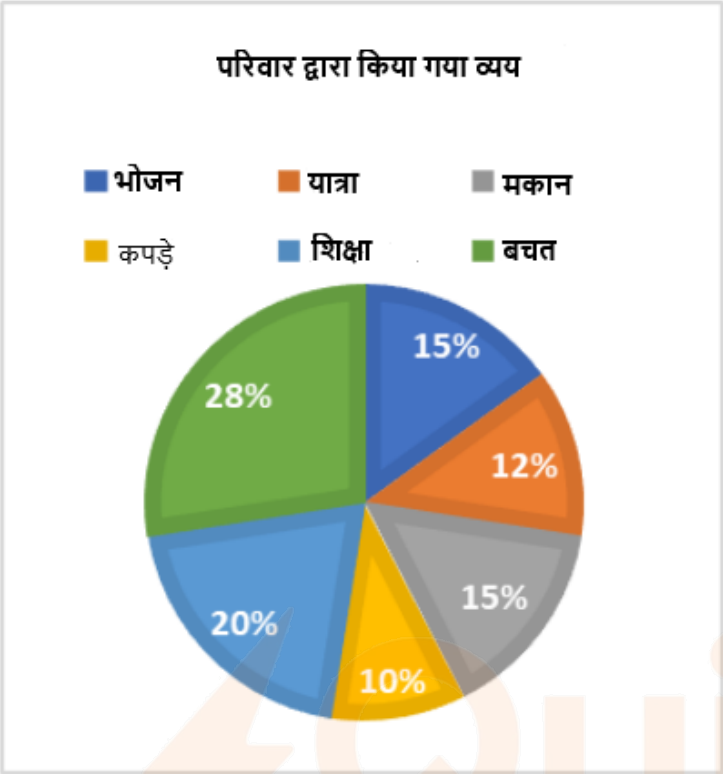

भोजन और शिक्षा पर व्यय का अनुपात ज्ञात कीजिए।

Ans
✗ 1. 2 : 3
✓ 2. 3 : 4
✗ 3. 4 : 3
✗ 4. 3 : 2

Question ID : **441009250342**
Option 1 ID : **441009975103**
Option 2 ID : **441009975104**
Option 3 ID : **441009975105**
Option 4 ID : **441009975106**

Q.8 दो पाइप A और B एक टैंक को क्रमशः 10 घंटे और 15 घंटे में भर सकते हैं। यदि दोनों पाइपों को एक साथ किसी खाली टैंक में चालू कर दिया जाए, तो उनके द्वारा इसे भरने में कितने घंटे लगेंगे?

Ans
✗ 1. 3
✓ 2. 6
✗ 3. 4
✗ 4. 5

Question ID : **441009988279**
Option 1 ID : **4410093905405**
Option 2 ID : **4410093905407**
Option 3 ID : **4410093905408**
Option 4 ID : **4410093905406**

QuickSarkari.com | WhatsApp Channel | Telegram: t.me/quick_sarkari

Q.9 $3.\overline{26} - 2.\overline{14} + 1.\overline{33}$ का मान ज्ञात कीजिए।

Ans
✔ 1. $\frac{243}{99}$
✘ 2. $\frac{245}{99}$
✘ 3. $\frac{288}{99}$
✘ 4. $\frac{214}{99}$

Question ID : **441009988412**
Option 1 ID : **4410093905938**
Option 2 ID : **4410093905937**
Option 3 ID : **4410093905940**
Option 4 ID : **4410093905939**

Q.10 76 cm भुजा वाले समबाहु त्रिभुज का क्षेत्रफल (cm^2 में) ज्ञात कीजिए।

Ans
✘ 1. $1439\sqrt{3}$
✘ 2. $1442\sqrt{3}$
✔ 3. $1444\sqrt{3}$
✘ 4. $1443\sqrt{3}$

Question ID : **441009988982**
Option 1 ID : **4410093908235**
Option 2 ID : **4410093908236**
Option 3 ID : **4410093908233**
Option 4 ID : **4410093908234**

Q.11 एक गोलाकार गेंद का आयतन 38,808 cm^3 है। यदि गेंद के पृष्ठ को पेंट करने की लागत ₹12.5 प्रति cm^2 है, तो गेंद को पेंट करने की कुल लागत (₹ में) ज्ञात कीजिए। ($\pi = \frac{22}{7}$ का उपयोग कीजिए)

Ans
✘ 1. 60,390
✘ 2. 72,000
✘ 3. 63,900
✔ 4. 69,300

Question ID : **441009989003**
Option 1 ID : **4410093908318**
Option 2 ID : **4410093908319**
Option 3 ID : **4410093908317**
Option 4 ID : **4410093908320**

QuickSarkari.com | WhatsApp Channel | Telegram: t.me/quick_sarkari

Q.12 30 आदमी एक नलकूप की खुदाई 20 दिन में पूरी कर सकते हैं। उन्होंने साथ मिलकर कार्य करना शुरू किया, लेकिन कुछ दिनों बाद 20 आदमी कार्य छोड़ देते हैं। यदि शेष कार्य 45 दिन में पूरा हुआ, तो कितने दिन बाद 20 आदमी कार्य छोड़कर चले गए थे?

Ans
✗ 1. 7 दिन
✗ 2. 6 दिन
✗ 3. 4 दिन
✓ 4. 5 दिन

Question ID : **441009988191**
Option 1 ID : **4410093905054**
Option 2 ID : **4410093905053**
Option 3 ID : **4410093905056**
Option 4 ID : **4410093905055**

Q.13 सोमवार को एक प्रदर्शनी देखने 1500 लोग आए, जबकि मंगलवार को 1680 लोग आए। सोमवार को प्रदर्शनी देखने आने वाले लोगों की संख्या के तुलना में, मंगलवार को प्रदर्शनी देखने आने वाले लोगों की संख्या में _____ % की वृद्धि हुई।

Ans
✗ 1. 10.71
✗ 2. 11.71
✓ 3. 12
✗ 4. 13

Question ID : **441009988302**
Option 1 ID : **4410093905499**
Option 2 ID : **4410093905500**
Option 3 ID : **4410093905497**
Option 4 ID : **4410093905498**

Q.14 वह अवधि (वर्ष में) ज्ञात कीजिए जिसमें ₹1,200 की धनराशि 10% वार्षिक साधारण ब्याज की दर से, ₹2,340 हो जाएगी।

Ans
✗ 1. 8.5
✗ 2. 11.5
✗ 3. 10.5
✓ 4. 9.5

Question ID : **441009988269**
Option 1 ID : **4410093905366**
Option 2 ID : **4410093905368**
Option 3 ID : **4410093905367**
Option 4 ID : **4410093905365**

QuickSarkari.com | WhatsApp Channel | Telegram: t.me/quick_sarkari

Q.15 अरविंद ने ₹x में एक वस्तु खरीदी। उसने इसे 15% हानि पर बीरू को बेच दिया। बीरू ने इसके परिवहन पर ₹176 खर्च किए तथा इसे 50% के लाभ पर मीनू को बेच दिया। यदि मीनू ने इसे ₹1,539 में खरीदा, तो x का मान (₹ में) ज्ञात कीजिए।

Ans
✔ 1. 1,000
✘ 2. 1,031
✘ 3. 1,046
✘ 4. 1,010

Question ID : **441009988160**
Option 1 ID : **4410093904929**
Option 2 ID : **4410093904931**
Option 3 ID : **4410093904932**
Option 4 ID : **4410093904930**

Q.16 एक ट्रक 8:00 a.m. पर 45 km/hr की चाल से शहर P से 360 km की दूरी पर स्थित शहर Q की ओर चलना शुरू करता है। एक कार 10:00 a.m. पर 75 km/hr की चाल से शहर Q से शहर P की ओर चलना शुरू करती है। वे एक दूसरे से किस समय मिलेंगे और शहर P से कितनी दूरी पर वे एक-दूसरे को पार करेंगे?

Ans
✔ 1. 12:15 p.m.; और 191.25 km
✘ 2. 12:15 p.m.; और 175.25 km
✘ 3. 12:35 p.m.; और 175.25 km
✘ 4. 12:35 p.m.; और 191.25 km

Question ID : **441009988136**
Option 1 ID : **4410093904833**
Option 2 ID : **4410093904834**
Option 3 ID : **4410093904836**
Option 4 ID : **4410093904835**

Q.17 40 का 60%, 35 के $\frac{2}{5}$ से कितना अधिक है?

Ans
✔ 1. 10
✘ 2. 8
✘ 3. 7
✘ 4. 4

Question ID : **441009988315**
Option 1 ID : **4410093905549**
Option 2 ID : **4410093905552**
Option 3 ID : **4410093905550**
Option 4 ID : **4410093905551**

QuickSarkari.com | WhatsApp Channel | Telegram: t.me/quick_sarkari

Q.18 एक वस्तु ₹765 में बेचने पर अय्यर को 15% की हानि होती है। 15% का लाभ अर्जित करने के लिए उसे, इस वस्तु को किस मूल्य पर बेचना होगा?

Ans
✗ 1. ₹795
✓ 2. ₹1,035
✗ 3. ₹900
✗ 4. ₹780

Question ID : **441009988242**
Option 1 ID : **4410093905258**
Option 2 ID : **4410093905259**
Option 3 ID : **4410093905257**
Option 4 ID : **4410093905260**

Q.19 एक समूह में 30 लड़कों का औसत वजन 52 kg है। 54 kg, 58 kg और 61 kg वजन वाले तीन अतिरिक्त लड़के इस समूह में शामिल हो जाते हैं। सभी लड़कों का नया औसत वजन (दशमलव के दो अंकों तक पूर्णांकित) ज्ञात कीजिए।

Ans
✗ 1. 52.00 kg
✗ 2. 54.00 kg
✗ 3. 54.63 kg
✓ 4. 52.52 kg

Question ID : **441009988246**
Option 1 ID : **4410093905273**
Option 2 ID : **4410093905275**
Option 3 ID : **4410093905276**
Option 4 ID : **4410093905274**

Q.20 निम्नलिखित का सरलीकृत मान ज्ञात कीजिए।

$$\left[\frac{65}{26} \times \frac{1}{18} - \left\{\left(\frac{38}{57} \div \frac{19}{95}\right) - \left(\frac{82}{123} \times \frac{78}{12}\right)\right\} \text{of } \frac{84}{27}\right]$$

Ans
✗ 1. $\frac{13}{2}$
✓ 2. $\frac{13}{4}$
✗ 3. $\frac{13}{3}$
✗ 4. $\frac{13}{5}$

Question ID : **441009988404**
Option 1 ID : **4410093905908**
Option 2 ID : **4410093905906**
Option 3 ID : **4410093905907**
Option 4 ID : **4410093905905**

Section : **Test of English Language and Comprehension**

QuickSarkari.com | WhatsApp Channel | Telegram: t.me/quick_sarkari

Q.1 Select the most appropriate preposition to fill in the blank.

The trekking team travelled _____ the country, visiting various landmarks.

Ans
✗ 1. besides
✓ 2. across
✗ 3. underneath
✗ 4. among

Question ID : **4410091006954**
Option 1 ID : **4410093979415**
Option 2 ID : **4410093979418**
Option 3 ID : **4410093979416**
Option 4 ID : **4410093979417**

Q.2 Select the most appropriate article to fill in the blank.

_____ camels are commercially useful for transportation in some villages of Rajasthan.

Ans
✗ 1. A
✗ 2. An
✓ 3. The
✗ 4. No article required

Question ID : **441009842393**
Option 1 ID : **4410093322641**
Option 2 ID : **4410093322642**
Option 3 ID : **4410093322640**
Option 4 ID : **4410093322643**

Q.3 Sentences of a paragraph are given below in jumbled order. Arrange the sentences in the correct order to form a meaningful and coherent paragraph.

A. In fact, in the heat of this buying blitz, even parents who desperately need to say no find themselves reaching for their credit cards.
B. But today's kids want much more, partly because there is so much more to want.
C. Today's parents themselves raised on values of thrift and self-sacrifice, grew up in a culture where 'no' was a household word.
D. One survey of teenagers found that when they crave for something new, most expect to ask nine times before their parents give in.
E. Psychologists say that parents who overindulge their kids, set them up to be more vulnerable to future anxiety and depression.

Ans
✗ 1. ECDBA
✗ 2. CBDAE
✓ 3. ECBDA
✗ 4. BCDAE

Question ID : **441009837562**
Option 1 ID : **4410093303351**
Option 2 ID : **4410093303349**
Option 3 ID : **4410093303350**
Option 4 ID : **4410093303348**

Q.4 Select the most appropriate option to fill in the blank.
Bravo! Our Indian army has exulted _____ our ruthless enemy.

Ans
✗ 1. at
✗ 2. into
✗ 3. above
✓ 4. over

Question ID : **4410091006959**
Option 1 ID : **4410093979436**
Option 2 ID : **4410093979437**
Option 3 ID : **4410093979438**
Option 4 ID : **4410093979435**

Q.5 Select the option that can be used as a one-word substitute for the underlined group of words in the following sentence.

<u>The serious and intellectually sophisticated</u> discussions at the literary festival explored complex topics, demonstrating a mix of knowledge and intellectual curiosity among the participants.

Ans
✗ 1. Aesthetic
✓ 2. Highbrow
✗ 3. Altruistic
✗ 4. Palpable

Question ID : **441009837566**
Option 1 ID : **4410093303364**
Option 2 ID : **4410093303366**
Option 3 ID : **4410093303365**
Option 4 ID : **4410093303367**

Q.6 Select the most appropriate article to fill in the blank.
His brother is a doctor who lives in _____ Netherlands since 2015.

Ans
✗ 1. No article required
✓ 2. The
✗ 3. An
✗ 4. A

Question ID : **441009842390**
Option 1 ID : **4410093322631**
Option 2 ID : **4410093322628**
Option 3 ID : **4410093322630**
Option 4 ID : **4410093322629**

QuickSarkari.com | WhatsApp Channel | Telegram: t.me/quick_sarkari

Q.7 Select the option that can be used as a one-word substitute for the given phrase.

An animal that has four feet.

Ans
✗ 1. Arbiter

✗ 2. Fierce

✗ 3. Cavalier

✓ 4. Quadruped

Question ID : **441009837577**
Option 1 ID : **4410093303409**
Option 2 ID : **4410093303411**
Option 3 ID : **4410093303408**
Option 4 ID : **4410093303410**

Q.8 Sentences of a paragraph are given below in jumbled order. Arrange the sentences in the correct order to form a meaningful and coherent paragraph.

A) Hurricanes, driven by heat from ocean waters, are often referred to as nature's steam engines.
B) As hurricanes move over the oceans, they convert this heat into immense kinetic energy, causing widespread devastation to islands and coastal cities, requiring extensive repairs.
C) With ocean temperatures now hitting record highs, these 'engines' are becoming more erratic, carving unpredictable paths, slowing down and growing increasingly dangerous.
D) Now, there's an urgent need to comprehend how hurricanes are reshaping established patterns, with the hope of adapting to these new realities.

Ans
✗ 1. ABCD

✗ 2. ABDC

✗ 3. ACDB

✓ 4. ACBD

Question ID : **441009837572**
Option 1 ID : **4410093303388**
Option 2 ID : **4410093303390**
Option 3 ID : **4410093303391**
Option 4 ID : **4410093303389**

Q.9 Select the most appropriate adjective to fill in the blank.
My house is _____ than yours.

Ans
✗ 1. much small

✓ 2. smaller

✗ 3. smallest

✗ 4. small

Question ID : **441009842394**
Option 1 ID : **4410093322647**
Option 2 ID : **4410093322645**
Option 3 ID : **4410093322646**
Option 4 ID : **4410093322644**

QuickSarkari.com | WhatsApp Channel | Telegram: t.me/quick_sarkari

Q.10 Select the most appropriate option that can replace the underlined segment in the following sentence.
He is <u>quite worthless</u> if he fails at this juncture.

Ans
✗ 1. a dime a dozen
✗ 2. in the nick of time
✗ 3. in hand and glove
✓ 4. not worth his salt

Question ID : **4410091054007**
Option 1 ID : **4410094165097**
Option 2 ID : **4410094165099**
Option 3 ID : **4410094165098**
Option 4 ID : **4410094165100**

Q.11 Select the most appropriate ANTONYM of the given word.
Repeal

Ans
✗ 1. Simplify
✗ 2. Distinguish
✗ 3. Break
✓ 4. Confirm

Question ID : **4410091054005**
Option 1 ID : **4410094165090**
Option 2 ID : **4410094165092**
Option 3 ID : **4410094165091**
Option 4 ID : **4410094165089**

Q.12 Select the most appropriate idiom that can substitute the underlined words in the given sentence.
Hunkering down and trying to <u>go through the difficult time</u>, seems to be the safest course.

Ans
✗ 1. run like wind
✗ 2. hit the sack
✓ 3. weather the storm
✗ 4. waste not, want not

Question ID : **441009845185**
Option 1 ID : **4410093333615**
Option 2 ID : **4410093333614**
Option 3 ID : **4410093333613**
Option 4 ID : **4410093333612**

QuickSarkari.com | WhatsApp Channel | Telegram: t.me/quick_sarkari

Q.13 Select the most appropriate option to fill in the blank.
The train that we boarded from Mumbai was _____ than the Mumbai local train.

Ans
✗ 1. fastest
✗ 2. fast
✓ 3. faster
✗ 4. most fastest

Question ID : **441009842388**
Option 1 ID : **4410093322622**
Option 2 ID : **4410093322620**
Option 3 ID : **4410093322621**
Option 4 ID : **4410093322623**

Q.14 Select the most appropriate meaning of the underlined word in the given sentence.

He did not concern himself with the interests of his own class, and <u>consequently</u>, some thought him proud and others thought him stupid.

Ans
✗ 1. irrelevantly
✓ 2. as a result
✗ 3. reluctantly
✗ 4. worthlessness

Question ID : **4410091054024**
Option 1 ID : **4410094165165**
Option 2 ID : **4410094165167**
Option 3 ID : **4410094165166**
Option 4 ID : **4410094165168**

Q.15 Select the INCORRECTLY spelt word.

Ans
✗ 1. Sequoia
✗ 2. Acrophobia
✓ 3. Onomatopoia
✗ 4. Animalia

Question ID : **441009845236**
Option 1 ID : **4410093333816**
Option 2 ID : **4410093333817**
Option 3 ID : **4410093333818**
Option 4 ID : **4410093333819**

QuickSarkari.com | WhatsApp Channel | Telegram: t.me/quick_sarkari

Comprehension:

Read the passage and answer the question that follows.

Food is more than survival. With it we make friends, court lovers, and count our blessings. The sharing of food has always been part of the human story. From Qesem Cave near Tel Aviv comes evidence of ancient meals prepared at a 3,00,000-year-old hearth, the oldest ever found, where diners gathered to eat together. Retrieved from the ashes of Vesuvius: a circular loaf of bread with scoring marks, baked to be divided. 'To break bread together', a phrase as old as the Bible, captures the power of a meal to forge relationships, bury anger, provoke laughter. Children make mud pies, have tea parties, trade snacks to make friends, and mimic the rituals of adults. They celebrate with sweets from the time of their first birthday, and the association of food with love will continue throughout life—and in some belief systems, into the afterlife. Consider the cultures that leave delicacies by the gravesides to let the departed know they are not forgotten. And even when times are tough, the urge to celebrate endures. In the Antarctic in 1902, during Robert Falcon Scott's Discovery expedition, the men prepared a fancy meal for Midwinter Day, the shortest day and longest night of the year. Hefty provisions had been brought on board. Forty-five live sheep were slaughtered and hung from the rigging, frozen by the elements until it was time to feast. The cold, the darkness, and the isolation were forgotten for a while. "With such a dinner," Scott wrote, "we agreed that life in the Antarctic Regions was worth living."

SubQuestion No : 16

Q.16 Why do people leave delicacies by gravesides?939

Ans

✗ 1. To let the dead people know that an afterlife exists

✓ 2. To let the dead people know that they are still remembered

✗ 3. To let the dead people know that the tradition of cooking continues

✗ 4. To let the dead people know that they are still hungry

Question ID : **4410091062803**
Option 1 ID : **4410094199101**
Option 2 ID : **4410094199099**
Option 3 ID : **4410094199100**
Option 4 ID : **4410094199098**

QuickSarkari.com | WhatsApp Channel | Telegram: t.me/quick_sarkari

Comprehension:

Read the passage and answer the question that follows.

Food is more than survival. With it we make friends, court lovers, and count our blessings. The sharing of food has always been part of the human story. From Qesem Cave near Tel Aviv comes evidence of ancient meals prepared at a 3,00,000-year-old hearth, the oldest ever found, where diners gathered to eat together. Retrieved from the ashes of Vesuvius: a circular loaf of bread with scoring marks, baked to be divided. 'To break bread together', a phrase as old as the Bible, captures the power of a meal to forge relationships, bury anger, provoke laughter. Children make mud pies, have tea parties, trade snacks to make friends, and mimic the rituals of adults. They celebrate with sweets from the time of their first birthday, and the association of food with love will continue throughout life—and in some belief systems, into the afterlife. Consider the cultures that leave delicacies by the gravesides to let the departed know they are not forgotten. And even when times are tough, the urge to celebrate endures. In the Antarctic in 1902, during Robert Falcon Scott's Discovery expedition, the men prepared a fancy meal for Midwinter Day, the shortest day and longest night of the year. Hefty provisions had been brought on board. Forty-five live sheep were slaughtered and hung from the rigging, frozen by the elements until it was time to feast. The cold, the darkness, and the isolation were forgotten for a while. "With such a dinner," Scott wrote, "we agreed that life in the Antarctic Regions was worth living."

SubQuestion No : 17

Q.17 Which of the following can be the most appropriate title for the above passage? 940

Ans

✗ 1. Mimicking Rituals of Adults

✗ 2. Nutrition and Taste: A Deadly Combination

✓ 3. Sharing Food: Part of Human Story

✗ 4. Courting Lovers Through Food

Question ID : **4410091062804**
Option 1 ID : **4410094199105**
Option 2 ID : **4410094199103**
Option 3 ID : **4410094199104**
Option 4 ID : **4410094199102**

QuickSarkari

Comprehension:

Read the passage and answer the question that follows.

Food is more than survival. With it we make friends, court lovers, and count our blessings. The sharing of food has always been part of the human story. From Qesem Cave near Tel Aviv comes evidence of ancient meals prepared at a 3,00,000-year-old hearth, the oldest ever found, where diners gathered to eat together. Retrieved from the ashes of Vesuvius: a circular loaf of bread with scoring marks, baked to be divided. 'To break bread together', a phrase as old as the Bible, captures the power of a meal to forge relationships, bury anger, provoke laughter. Children make mud pies, have tea parties, trade snacks to make friends, and mimic the rituals of adults. They celebrate with sweets from the time of their first birthday, and the association of food with love will continue throughout life—and in some belief systems, into the afterlife. Consider the cultures that leave delicacies by the gravesides to let the departed know they are not forgotten. And even when times are tough, the urge to celebrate endures. In the Antarctic in 1902, during Robert Falcon Scott's Discovery expedition, the men prepared a fancy meal for Midwinter Day, the shortest day and longest night of the year. Hefty provisions had been brought on board. Forty-five live sheep were slaughtered and hung from the rigging, frozen by the elements until it was time to feast. The cold, the darkness, and the isolation were forgotten for a while. "With such a dinner," Scott wrote, "we agreed that life in the Antarctic Regions was worth living."

SubQuestion No : 18

Q.18 What does the phrase 'breaking bread together' convey? 941

Ans

✗ 1. It conveys making mud pies, having tea parties and trading snacks to make friends.

✗ 2. It conveys leaving delicacies by gravesides for the departed ones.

✓ 3. It conveys the power of a meal to forge relationships, bury anger and provoke laughter.

✗ 4. It conveys a circular loaf of bread with scoring marks, baked to be divided.

Question ID : **4410091062805**
Option 1 ID : **4410094199109**
Option 2 ID : **4410094199106**
Option 3 ID : **4410094199108**
Option 4 ID : **4410094199107**

QuickSarkari.com | WhatsApp Channel | Telegram: t.me/quick_sarkari

Comprehension:

Read the passage and answer the question that follows.

Food is more than survival. With it we make friends, court lovers, and count our blessings. The sharing of food has always been part of the human story. From Qesem Cave near Tel Aviv comes evidence of ancient meals prepared at a 3,00,000-year-old hearth, the oldest ever found, where diners gathered to eat together. Retrieved from the ashes of Vesuvius: a circular loaf of bread with scoring marks, baked to be divided. 'To break bread together', a phrase as old as the Bible, captures the power of a meal to forge relationships, bury anger, provoke laughter. Children make mud pies, have tea parties, trade snacks to make friends, and mimic the rituals of adults. They celebrate with sweets from the time of their first birthday, and the association of food with love will continue throughout life—and in some belief systems, into the afterlife. Consider the cultures that leave delicacies by the gravesides to let the departed know they are not forgotten. And even when times are tough, the urge to celebrate endures. In the Antarctic in 1902, during Robert Falcon Scott's Discovery expedition, the men prepared a fancy meal for Midwinter Day, the shortest day and longest night of the year. Hefty provisions had been brought on board. Forty-five live sheep were slaughtered and hung from the rigging, frozen by the elements until it was time to feast. The cold, the darkness, and the isolation were forgotten for a while. "With such a dinner," Scott wrote, "we agreed that life in the Antarctic Regions was worth living."

SubQuestion No : 19

Q.19 What made people forget the cold, darkness, and isolation for a while in Antarctic in 1902? 942

Ans

✔ 1. A fancy meal shared with each other

✘ 2. Being surrounded by 45 sheep

✘ 3. It being a midwinter day

✘ 4. Leaving delicacies in the graveyard

Question ID : **4410091062806**
Option 1 ID : **4410094199112**
Option 2 ID : **4410094199110**
Option 3 ID : **4410094199113**
Option 4 ID : **4410094199111**

QuickSarkari.com | WhatsApp Channel | Telegram: t.me/quick_sarkari

Comprehension:

Read the passage and answer the question that follows.

Food is more than survival. With it we make friends, court lovers, and count our blessings. The sharing of food has always been part of the human story. From Qesem Cave near Tel Aviv comes evidence of ancient meals prepared at a 3,00,000-year-old hearth, the oldest ever found, where diners gathered to eat together. Retrieved from the ashes of Vesuvius: a circular loaf of bread with scoring marks, baked to be divided. 'To break bread together', a phrase as old as the Bible, captures the power of a meal to forge relationships, bury anger, provoke laughter. Children make mud pies, have tea parties, trade snacks to make friends, and mimic the rituals of adults. They celebrate with sweets from the time of their first birthday, and the association of food with love will continue throughout life—and in some belief systems, into the afterlife. Consider the cultures that leave delicacies by the gravesides to let the departed know they are not forgotten. And even when times are tough, the urge to celebrate endures. In the Antarctic in 1902, during Robert Falcon Scott's Discovery expedition, the men prepared a fancy meal for Midwinter Day, the shortest day and longest night of the year. Hefty provisions had been brought on board. Forty-five live sheep were slaughtered and hung from the rigging, frozen by the elements until it was time to feast. The cold, the darkness, and the isolation were forgotten for a while. "With such a dinner," Scott wrote, "we agreed that life in the Antarctic Regions was worth living."

SubQuestion No : 20

Q.20 What is the meaning of the word 'forge' in the context of this passage? 943

Ans

✔ 1. To put an effort into making something strong and successful

✘ 2. To make an illegal copy of something

✘ 3. To make bread crispy and healthy

✘ 4. A place where objects are made by heating and shaping metal

Question ID : **4410091062807**
Option 1 ID : **4410094199115**
Option 2 ID : **4410094199116**
Option 3 ID : **4410094199114**
Option 4 ID : **4410094199117**

Section : **Test of Hindi Language and Comprehension**

Q.1 निम्नलिखित रेखांकित वाक्यांश के लिए विकल्प में से एक शब्द का चयन करें।
मोहन हर काम को जरूरत से ज्यादा देर में करने वाला है।

Ans

✘ 1. दीर्घसूत्री

✔ 2. विलम्बी

✘ 3. अदूरदर्शी

✘ 4. दीर्घदर्शी

Question ID : **441009841776**
Option 1 ID : **4410093320175**
Option 2 ID : **4410093320174**
Option 3 ID : **4410093320173**
Option 4 ID : **4410093320172**

Q.2 निम्नलिखित विकल्पों में से कौन सा एक विलोम युग्म सही है?

Ans
✗ 1. अवनि - अंतिम
✗ 2. आलोक - व्यय
✗ 3. अभ्यास - प्रतिमुख
✓ 4. अत्यधिक - अत्यल्प

Question ID : **441009305112**
Option 1 ID : **4410091187121**
Option 2 ID : **4410091187119**
Option 3 ID : **4410091187120**
Option 4 ID : **4410091187118**

Q.3 निम्नलिखित लोकोक्ति के लिए उपयुक्त अर्थ का चयन करें-
'कोयल होये न उजली सौ मन साबुन लाइ'

Ans
✗ 1. चंचल मन वाला
✓ 2. स्वभाव नहीं बदलता
✗ 3. स्वार्थी व्यक्ति
✗ 4. मिथ्या आडंबर

Question ID : **441009310226**
Option 1 ID : **4410091207389**
Option 2 ID : **4410091207388**
Option 3 ID : **4410091207390**
Option 4 ID : **4410091207391**

Q.4 निम्नलिखित लोकोक्ति के लिए उपयुक्त अर्थ का चयन करें-
'अँधा पीसे कुत्ता खाए'

Ans
✗ 1. एक की मजबूरी से दूसरे को लाभ हो जाता है
✗ 2. छोटा बड़े को उपदेश देता है
✗ 3. अंधे व्यक्ति का फायदा कुत्ता उठा लेता है
✓ 4. अभागा सुख से वंचित रह जाता है

Question ID : **441009310209**
Option 1 ID : **4410091207322**
Option 2 ID : **4410091207323**
Option 3 ID : **4410091207320**
Option 4 ID : **4410091207321**

Q.5 दिए गए वाक्य में उचित कारक का प्रयोग कर वाक्य पूर्ण करें-
'मेज फल रखे हैं।'

Ans
✗ 1. के
✗ 2. ने
✗ 3. से
✓ 4. पर

Question ID : **441009317782**
Option 1 ID : **4410091237613**
Option 2 ID : **4410091237616**
Option 3 ID : **4410091237614**
Option 4 ID : **4410091237615**

QuickSarkari.com | WhatsApp Channel | Telegram: t.me/quick_sarkari

Q.6 दिए गए वाक्यों में से सही वाक्य क्रम का चयन कीजिए।

Ans
✗ 1. उसकी आ गई दुरवस्था देखकर दया ।
✗ 2. गई उसकी दुरवस्था देखकर दया आ।
✓ 3. उसकी दुरवस्था देखकर दया आ गई।
✗ 4. उसकी देखकर दया आ गई दुरवस्था ।

Question ID : **441009323952**
Option 1 ID : **4410091262015**
Option 2 ID : **4410091262012**
Option 3 ID : **4410091262013**
Option 4 ID : **4410091262014**

Q.7 तद्भव शब्द का चयन करें-

Ans
✗ 1. कर्पूर
✓ 2. कपड़ा
✗ 3. कटुक
✗ 4. कर्पट

Question ID : **441009308999**
Option 1 ID : **4410091202650**
Option 2 ID : **4410091202649**
Option 3 ID : **4410091202651**
Option 4 ID : **4410091202648**

Q.8 दिए गए वाक्य के किस भाग में त्रुटि है?

यदि साहित्य को सौंदर्य की मूर्त अभिव्यक्ति कहा जाए, तो कालीदास उसके सबसे श्रेष्ठ मूर्तिकार कहे जा सकते हैं।

Ans
✗ 1. साहित्य
✓ 2. कालीदास
✗ 3. अभिव्यक्ति
✗ 4. मूर्तिकार

Question ID : **441009311862**
Option 1 ID : **4410091213870**
Option 2 ID : **4410091213872**
Option 3 ID : **4410091213871**
Option 4 ID : **4410091213873**

Q.9 दिए गए वाक्यों में से सही वाक्य क्रम का चयन कीजिए।

Ans
✗ 1. का भाई उसके नाम शशिकांत है।
✓ 2. उसके भाई का नाम शशिकांत है।
✗ 3. भाई उसके नाम का शशिकांत है।
✗ 4. भाई उसके का नाम शशिकांत है।

Question ID : **441009323963**
Option 1 ID : **4410091262066**
Option 2 ID : **4410091262067**
Option 3 ID : **4410091262065**
Option 4 ID : **4410091262064**

QuickSarkari.com | WhatsApp Channel | Telegram: t.me/quick_sarkari

Q.10 निम्नलिखित विकल्पों में से कौन सा एक विलोम युग्म सही है?

Ans
✗ 1. आहूत - आहत
✓ 2. अर्पण - ग्रहण
✗ 3. उत्कृष्ट- उत्कर्ष
✗ 4. अवशेष - अम्बर

Question ID : **441009305121**
Option 1 ID : **4410091187155**
Option 2 ID : **4410091187157**
Option 3 ID : **4410091187154**
Option 4 ID : **4410091187156**

Q.11 दिए गए वाक्य में उचित कारक का प्रयोग कर वाक्य पूर्ण करें-
'पिता जी खाना बनाना है।'

Ans
✓ 1. के लिए
✗ 2. में
✗ 3. पर
✗ 4. से

Question ID : **441009317785**
Option 1 ID : **4410091237626**
Option 2 ID : **4410091237627**
Option 3 ID : **4410091237628**
Option 4 ID : **4410091237625**

Q.12 दिए गए विकल्प में से क्रिया-विशेषण के उचित भेद को चुन कर वाक्य पूर्ण करें -

अध्यापक ने सुबह बच्चों को पढ़ाया। वाक्य में ..... क्रिया-विशेषण है।

Ans
✗ 1. परिमाणवाचक
✗ 2. रीतिवाचक
✓ 3. कालवाचक
✗ 4. स्थानवाचक

Question ID : **441009323169**
Option 1 ID : **4410091258857**
Option 2 ID : **4410091258855**
Option 3 ID : **4410091258856**
Option 4 ID : **4410091258854**

Q.13 नीचे दिए गए वाक्य के किस भाग में त्रुटि है ?
'तब हम लोगों को हंसी आती है।'

Ans
✗ 1. हम लोगों को
✗ 2. तब
✓ 3. हंसी
✗ 4. आती है

Question ID : **441009327529**
Option 1 ID : **4410091276467**
Option 2 ID : **4410091276466**
Option 3 ID : **4410091276468**
Option 4 ID : **4410091276469**

QuickSarkari.com | WhatsApp Channel | Telegram: t.me/quick_sarkari

Q.14 निम्नलिखित में से 'द्विज' शब्द का अर्थ क्या है?

Ans
✔ 1. चंद्रमा
✘ 2. बूँद
✘ 3. शिथिल
✘ 4. सैनिक

Question ID : **441009311802**
Option 1 ID : **4410091213633**
Option 2 ID : **4410091213631**
Option 3 ID : **4410091213630**
Option 4 ID : **4410091213632**

Q.15 "कुबेर का बगीचा" निम्न वाक्यांश के लिए एक शब्द कौनसा है?

Ans
✘ 1. विस्र
✘ 2. नलकूबर
✔ 3. चैत्ररथ
✘ 4. पुष्पक

Question ID : **441009360920**
Option 1 ID : **4410091409689**
Option 2 ID : **4410091409687**
Option 3 ID : **4410091409686**
Option 4 ID : **4410091409688**

Comprehension:

दिए गए गद्यांश के आधार पर निम्नलिखित प्रश्नों के उत्तर दीजिए।
मैं सारे काम करती हूँ, सातों दिन, हर वक्त काम करती हूँ, काम में पिसने (घोर परिश्रम) से यहाँ कोई बचाव नहीं, (एक महिला ने इस प्रश्न का उत्तर दिया)
"तुम क्या काम करती हो?" और मेरी पत्नी कोई काम नहीं करती, वह घर पर है, (एक पुरुष ने इस प्रश्न का उत्तर दिया)
"तुम्हारी पत्नी क्या काम करती है ?" यह दो प्रत्युत्तर जाति,वर्ग, सीमा से परे महिलाओं की काम की जटिल प्रकृति का सूचक है। वास्तव में महिलाओं के कार्य ने समाज को संपोषित किया है। महिलाएं गृहस्थी के लिए दौड़ती हैं, बच्चों का पालन -पोषण करती हैं, बीमार और बुजुर्गों की चिंता करती हैं, खेती पर और कारखानों में कठिन परिश्रम करती हैं। महिलाएं दफ़्तर, खेती ,कारखानों में काम पर दिखती हैं पर अधिकतर समय उनके व्यस्त हाथों को सामाजिक परिवेश की वजह से लोग महत्त्व नहीं देते। उनके कार्यों और योगदान को समाज यह मानकर चलता है कि परिवार की बेहतरी और उसको बनाए रखने का उनका योगदान, समाज-परिवार के लिए उनकी चिंता, पारिवारिक सदस्यों का पालन-पोषण और इन सबके लिए स्वयं को मिटा देने की प्रवृत्ति, प्राकृतिक और स्त्रियोचित गुणों का परिणाम है।

SubQuestion No : 16

Q.16 दिए गए गद्यांश के लिए उपयुक्त शीर्षक का चयन कीजिए।

Ans
✘ 1. महिला और अशिक्षा
✔ 2. महिला और कार्य
✘ 3. महिला और राजनीति
✘ 4. महिला और संगीत

Question ID : **441009319946**
Option 1 ID : **4410091246060**
Option 2 ID : **4410091246059**
Option 3 ID : **4410091246058**
Option 4 ID : **4410091246057**

Comprehension:

दिए गए गद्यांश के आधार पर निम्नलिखित प्रश्नों के उत्तर दीजिए।
मैं सारे काम करती हूँ, सातों दिन, हर वक्त काम करती हूँ, काम में पिसने (घोर परिश्रम) से यहाँ कोई बचाव नहीं, (एक महिला ने इस प्रश्न का उत्तर दिया)
"तुम क्या काम करती हो?" और मेरी पत्नी कोई काम नहीं करती, वह घर पर है, (एक पुरुष ने इस प्रश्न का उत्तर दिया)
"तुम्हारी पत्नी क्या काम करती है ?" यह दो प्रत्युत्तर जाति,वर्ग, सीमा से परे महिलाओं की काम की जटिल प्रकृति का सूचक है। वास्तव में महिलाओं के कार्य ने समाज को संपोषित किया है। महिलाएं गृहस्थी के लिए दौड़ती हैं, बच्चों का पालन -पोषण करती हैं, बीमार और बुजुर्गों की चिंता करती हैं, खेती पर और कारखानों में कठिन परिश्रम करती हैं। महिलाएं दफ़्तर, खेती ,कारखानों में काम पर दिखती हैं पर अधिकतर समय उनके व्यस्त हाथों को सामाजिक परिवेश की वजह से लोग महत्त्व नहीं देते। उनके कार्यों और योगदान को समाज यह मानकर चलता है कि परिवार की बेहतरी और उसको बनाए रखने का उनका योगदान, समाज-परिवार के लिए उनकी चिंता, पारिवारिक सदस्यों का पालन-पोषण और इन सबके लिए स्वयं को मिटा देने की प्रवृत्ति, प्राकृतिक और स्त्रियोचित गुणों का परिणाम है।

SubQuestion No : 17

Q.17 "तुम क्या काम करती हो?" प्रश्न के सन्दर्भ में महिला का कौन-सा कथन असत्य है ?

Ans

✗ 1. काम में पिसने से यहाँ कोई बचाव नहीं है ।

✓ 2. मैं कोई काम नहीं करती हूँ ।

✗ 3. सातों दिन ,हर वक्त काम करती हूँ ।

✗ 4. मैं सारे काम करती हूँ ।

Question ID : **441009319947**
Option 1 ID : **4410091246063**
Option 2 ID : **4410091246064**
Option 3 ID : **4410091246062**
Option 4 ID : **4410091246061**

Comprehension:

दिए गए गद्यांश के आधार पर निम्नलिखित प्रश्नों के उत्तर दीजिए।
मैं सारे काम करती हूँ, सातों दिन, हर वक्त काम करती हूँ, काम में पिसने (घोर परिश्रम) से यहाँ कोई बचाव नहीं, (एक महिला ने इस प्रश्न का उत्तर दिया)
"तुम क्या काम करती हो?" और मेरी पत्नी कोई काम नहीं करती, वह घर पर है, (एक पुरुष ने इस प्रश्न का उत्तर दिया)
"तुम्हारी पत्नी क्या काम करती है ?" यह दो प्रत्युत्तर जाति,वर्ग, सीमा से परे महिलाओं की काम की जटिल प्रकृति का सूचक है। वास्तव में महिलाओं के कार्य ने समाज को संपोषित किया है। महिलाएं गृहस्थी के लिए दौड़ती हैं, बच्चों का पालन -पोषण करती हैं, बीमार और बुजुर्गों की चिंता करती हैं, खेती पर और कारखानों में कठिन परिश्रम करती हैं। महिलाएं दफ़्तर, खेती ,कारखानों में काम पर दिखती हैं पर अधिकतर समय उनके व्यस्त हाथों को सामाजिक परिवेश की वजह से लोग महत्त्व नहीं देते। उनके कार्यों और योगदान को समाज यह मानकर चलता है कि परिवार की बेहतरी और उसको बनाए रखने का उनका योगदान, समाज-परिवार के लिए उनकी चिंता, पारिवारिक सदस्यों का पालन-पोषण और इन सबके लिए स्वयं को मिटा देने की प्रवृत्ति, प्राकृतिक और स्त्रियोचित गुणों का परिणाम है।

SubQuestion No : 18

Q.18 महिलाओं के कार्य के विषय में कौन-सा कथन असत्य है ?

Ans

✗ 1. महिलाएं गृहस्थी के लिए दौड़ती हैं ।

✗ 2. बीमार और बुजुर्गों की चिंता करती हैं ।

✓ 3. महिलाएं प्रत्येक कार्य से डरती हैं ।

✗ 4. बच्चों का पालन-पोषण करती हैं ।

Question ID : **441009319948**
Option 1 ID : **4410091246065**
Option 2 ID : **4410091246067**
Option 3 ID : **4410091246068**
Option 4 ID : **4410091246066**

Comprehension:

दिए गए गद्यांश के आधार पर निम्नलिखित प्रश्नों के उत्तर दीजिए।
मैं सारे काम करती हूँ, सातों दिन, हर वक्त काम करती हूँ, काम में पिसने (घोर परिश्रम) से यहाँ कोई बचाव नहीं, (एक महिला ने इस प्रश्न का उत्तर दिया)
"तुम क्या काम करती हो?" और मेरी पत्नी कोई काम नहीं करती, वह घर पर है, (एक पुरुष ने इस प्रश्न का उत्तर दिया)
"तुम्हारी पत्नी क्या काम करती है ?" यह दो प्रत्युत्तर जाति,वर्ग, सीमा से परे महिलाओं की काम की जटिल प्रकृति का सूचक है। वास्तव में महिलाओं के कार्य ने समाज को संपोषित किया है। महिलाएं गृहस्थी के लिए दौड़ती हैं, बच्चों का पालन -पोषण करती हैं, बीमार और बुजुर्गों की चिंता करती हैं, खेती पर और कारखानों में कठिन परिश्रम करती हैं। महिलाएं दफ़्तर, खेती ,कारखानों में काम पर दिखती हैं पर अधिकतर समय उनके व्यस्त हाथों को सामाजिक परिवेश की वजह से लोग महत्त्व नहीं देते। उनके कार्यों और योगदान को समाज यह मानकर चलता है कि परिवार की बेहतरी और उसको बनाए रखने का उनका योगदान, समाज-परिवार के लिए उनकी चिंता, पारिवारिक सदस्यों का पालन-पोषण और इन सबके लिए स्वयं को मिटा देने की प्रवृत्ति, प्राकृतिक और स्त्रियोचित गुणों का परिणाम है।

SubQuestion No : 19

Q.19 वाक्य में प्रयुक्त 'पत्नी' का पर्यायवाची शब्द होगा -

Ans
✔ 1. कलत्र
✘ 2. आपगा
✘ 3. रजनीपति
✘ 4. वसुधा

Question ID : **441009319949**
Option 1 ID : **4410091246071**
Option 2 ID : **4410091246069**
Option 3 ID : **4410091246070**
Option 4 ID : **4410091246072**

Comprehension:

दिए गए गद्यांश के आधार पर निम्नलिखित प्रश्नों के उत्तर दीजिए।
मैं सारे काम करती हूँ, सातों दिन, हर वक्त काम करती हूँ, काम में पिसने (घोर परिश्रम) से यहाँ कोई बचाव नहीं, (एक महिला ने इस प्रश्न का उत्तर दिया)
"तुम क्या काम करती हो?" और मेरी पत्नी कोई काम नहीं करती, वह घर पर है, (एक पुरुष ने इस प्रश्न का उत्तर दिया)
"तुम्हारी पत्नी क्या काम करती है ?" यह दो प्रत्युत्तर जाति,वर्ग, सीमा से परे महिलाओं की काम की जटिल प्रकृति का सूचक है। वास्तव में महिलाओं के कार्य ने समाज को संपोषित किया है। महिलाएं गृहस्थी के लिए दौड़ती हैं, बच्चों का पालन -पोषण करती हैं, बीमार और बुजुर्गों की चिंता करती हैं, खेती पर और कारखानों में कठिन परिश्रम करती हैं। महिलाएं दफ़्तर, खेती ,कारखानों में काम पर दिखती हैं पर अधिकतर समय उनके व्यस्त हाथों को सामाजिक परिवेश की वजह से लोग महत्त्व नहीं देते। उनके कार्यों और योगदान को समाज यह मानकर चलता है कि परिवार की बेहतरी और उसको बनाए रखने का उनका योगदान, समाज-परिवार के लिए उनकी चिंता, पारिवारिक सदस्यों का पालन-पोषण और इन सबके लिए स्वयं को मिटा देने की प्रवृत्ति, प्राकृतिक और स्त्रियोचित गुणों का परिणाम है।

SubQuestion No : 20

Q.20 गद्यांश में प्रयुक्त 'जटिल' का विलोम शब्द होगा -

Ans
✘ 1. मरण
✘ 2. पराजय
✘ 3. चेतन
✔ 4. सरल

Question ID : **441009319950**
Option 1 ID : **4410091246074**
Option 2 ID : **4410091246075**
Option 3 ID : **4410091246073**
Option 4 ID : **4410091246076**

Section : **Discipline1**

Q.1 Which of the following individual differences includes the 'rate of muscular movement'?

Ans ✗ 1. Emotional Differences

✓ 2. Differences in Motor Ability

✗ 3. Differences in Achievement

✗ 4. Mental Difference

Question ID : **441009984634**
Option 1 ID : **4410093890963**
Option 2 ID : **4410093890965**
Option 3 ID : **4410093890962**
Option 4 ID : **4410093890964**

Q.2 संतुलित साक्षरता रूपरेखा के प्रमुख घटक क्या हैं?

Ans ✗ 1. कलात्मक सृजन, संगीत प्रदर्शन और खेलकूद प्रशिक्षण

✗ 2. ऐतिहासिक अनुसंधान, वैज्ञानिक अन्वेषण और गणितीय समस्या-समाधान

✗ 3. आर्थिक विश्लेषण, राजनीति विज्ञान और समाजशास्त्र

✓ 4. स्वनिमिक (Phonemic) जागरूकता, स्वनिक अनुदेश (phonics instruction), पठन प्रवाह, शब्दावली और बोध

Question ID : **441009983999**
Option 1 ID : **4410093888427**
Option 2 ID : **4410093888426**
Option 3 ID : **4410093888428**
Option 4 ID : **4410093888429**

Q.3 भाषा विकास के किस चरण में बच्चे दो या तीन शब्दों को मिलाकर सरल वाक्य बनाना शुरू करते हैं, तथा प्रायः कम महत्वपूर्ण शब्दों को छोड़ देते हैं (जैसे, "कुकी चाहिए")?

Ans ✗ 1. बहुसंश्लेषणात्मक चरण (Holophrastic stage)

✗ 2. किलकना (Cooing)

✗ 3. बबलाना (Babbling)

✓ 4. टेलीग्राफिक चरण (Telegraphic stage)

Question ID : **441009984013**
Option 1 ID : **4410093888484**
Option 2 ID : **4410093888483**
Option 3 ID : **4410093888482**
Option 4 ID : **4410093888485**

Q.4 साक्षरता के शून्य चरण में बच्चों के लिए शिक्षा का प्राथमिक केंद्र क्या है?

Ans ✗ 1. पाठों का विश्लेषण और व्याख्या करना सीखना

✓ 2. बोली जाने वाली भाषा में ध्वनियों के प्रति जागरूकता विकसित करना

✗ 3. विस्तृत पठन के माध्यम से शब्दावली में वृद्धि

✗ 4. अनुसंधान पत्र लिखना

Question ID : **441009983996**
Option 1 ID : **4410093888416**
Option 2 ID : **4410093888415**
Option 3 ID : **4410093888414**
Option 4 ID : **4410093888417**

Q.5 छोटे बच्चों को चित्र देखने, पढ़ने और उनके संबंध में बात करने के अवसर प्रदान करना क्यों महत्वपूर्ण है?

Ans
✗ 1. उन्हें चित्रों में वस्तुओं के नाम स्मरण करने में सहायता करने के लिए
✓ 2. दृश्य निरूपण और परिप्रेक्ष्य की उनकी समझ को धीरे-धीरे विकसित करने के लिए
✗ 3. उन्हें कम आयु में ही चित्रकारी की तकनीक सिखाने के लिए
✗ 4. चित्रों को बार-बार देखने से उनकी दृष्टि में सुधार करने के लिए

Question ID : **4410091083274**
Option 1 ID : **4410094270281**
Option 2 ID : **4410094270283**
Option 3 ID : **4410094270284**
Option 4 ID : **4410094270282**

Q.6 गणना (numeracy) को बढ़ावा देने के लिए, शिक्षकों को किस पर संकेंद्रित होना चाहिए?

Ans
✓ 1. व्यावहारिक ज्ञान (Hands-on experiences)
✗ 2. सैद्धांतिक व्याख्या (Theoretical explanation)
✗ 3. जटिल शब्दावली (Complex vocabulary)
✗ 4. पुनरावृत्ति और अभ्यास (Repetition and drills)

Question ID : **4410091098567**
Option 1 ID : **4410094331643**
Option 2 ID : **4410094331641**
Option 3 ID : **4410094331644**
Option 4 ID : **4410094331642**

Q.7 निम्नलिखित में से कौन-सा प्रारंभिक भाषा विकास का हिस्सा नहीं है?

Ans
✗ 1. चिह्न की पहचान (Symbol recognition)
✓ 2. व्याकरण विश्लेषण (Grammar analysis)
✗ 3. मौखिक अंत:क्रिया (Oral interaction)
✗ 4. स्वनिमिक जागरूकता (Phonemic awareness)

Question ID : **4410091099591**
Option 1 ID : **4410094335739**
Option 2 ID : **4410094335738**
Option 3 ID : **4410094335740**
Option 4 ID : **4410094335737**

Q.8 अधिगम को बढ़ावा देने के लिए बाह्य वातावरण का उपयोग किस प्रकार किया जा सकता है?

Ans
✗ 1. कक्षा की व्यवस्था
✓ 2. अन्वेषण एवं खोज के अवसर प्रदान करके
✗ 3. बच्चों के संचलन एवं गतिविधि को प्रतिबंधित करके
✗ 4. बाह्य स्थान की उपेक्षा करके

Question ID : **441009984305**
Option 1 ID : **4410093889646**
Option 2 ID : **4410093889647**
Option 3 ID : **4410093889648**
Option 4 ID : **4410093889649**

QuickSarkari.com | WhatsApp Channel | Telegram: t.me/quick_sarkari

Q.9 जब कोई बच्ची कई सेटों में बटनों को लगातार रंग के आधार पर समूहित करती है तो वह क्या प्रदर्शित करती है?

Ans
✗ 1. गिनती की समझ
✓ 2. एकल गुण (single property) के आधार पर वर्गीकरण करने की क्षमता
✗ 3. गुणन में निपुणता
✗ 4. विशेषताओं (attributes) के बीच भ्रम

Question ID : **4410091083323**
Option 1 ID : **4410094270407**
Option 2 ID : **4410094270409**
Option 3 ID : **4410094270408**
Option 4 ID : **4410094270410**

Q.10 भाषा के प्रकार का उदाहरणों से मिलान कीजिए।

भाषा के प्रकार उदाहरण
1. सूचनात्मक a) "मुझे अपनी पदोन्नति की घोषणा करते हुए बहुत खुशी हो रही है!"
2. अभिव्यंजक b) "कृपया जाते समय दरवाजा बंद कर दें"।
3. निदेशात्मक c) "एफिल टॉवर पेरिस में स्थित है"।

Ans
✓ 1. 1-c, 2-a, 3-b
✗ 2. 1-b, 2-a, 3-c
✗ 3. 1-c, 2-b, 3-a
✗ 4. 1-a, 2-b, 3-c

Question ID : **441009984020**
Option 1 ID : **4410093888510**
Option 2 ID : **4410093888513**
Option 3 ID : **4410093888512**
Option 4 ID : **4410093888511**

Q.11 अनुशंसा देने (giving recommendation) के संदर्भ में, निम्नलिखित में से कौन-सा वाक्य सही है?

Ans
✓ 1. He advises us to stay indoors during the storm.
✗ 2. He advised us to stay indoors during the storm.
✗ 3. He advise to stay indoors during the storm.
✗ 4. He advising us to stay indoors during the storm.

Question ID : **441009984021**
Option 1 ID : **4410093888517**
Option 2 ID : **4410093888514**
Option 3 ID : **4410093888515**
Option 4 ID : **4410093888516**

QuickSarkari.com | WhatsApp Channel | Telegram: t.me/quick_sarkari

Q.12 निम्नलिखित में से, इनडोर अधिगम परिवेश में डिस्प्ले बोर्ड (display boards) की भूमिका के संदर्भ में सही विकल्प का चयन कीजिए।

a) बच्चों के कार्य को प्रदर्शित करना।
b) कक्ष को सुंदर बनाना।

Ans
✗ 1. विकल्प b सही है, a गलत है।
✗ 2. विकल्प a सही है, b गलत है।
✗ 3. विकल्प a और b गलत हैं।
✓ 4. विकल्प a और b सही हैं।

Question ID : **441009984287**
Option 1 ID : **4410093889576**
Option 2 ID : **4410093889574**
Option 3 ID : **4410093889575**
Option 4 ID : **4410093889577**

Q.13 स्टटरिंग (stuttering) और स्टैमरिंग (stammering) के बीच मुख्य अंतर निम्नलिखित में से क्या है?

Ans
✗ 1. स्टटरिंग संवेगों से संबंधित है, स्टैमरिंग नहीं।
✗ 2. स्टटरिंग लेखन के दौरान होती है, स्टैमरिंग भाषण के समय होती है।
✗ 3. स्टटरिंग लड़कियों में अधिक सामान्य है, जबकि लड़कों में स्टैमरिंग सामान्य है।
✓ 4. स्टटरिंग में ध्वनियों की पुनरावर्ती शामिल है; स्टैमरिंग में दीर्घ विराम शामिल हैं।

Question ID : **4410091084131**
Option 1 ID : **4410094273615**
Option 2 ID : **4410094273616**
Option 3 ID : **4410094273617**
Option 4 ID : **4410094273618**

Q.14 निम्नलिखित में से किस संयोजन को एकीकृत करने के कारण पर्यावरण अध्ययन को बहुविषयक माना जाता है?

Ans
✗ 1. नवीकरणीय संसाधनों के प्रबंधन हेतु केवल प्रौद्योगिकीय हस्तक्षेप
✓ 2. पर्यावरणीय मुद्दों को साकल्यवादी ढंग से समझने के लिए वैज्ञानिक, सामाजिक और मानविकी-आधारित परिप्रेक्ष्य
✗ 3. पर्यावरण प्रदूषण का अध्ययन करने के लिए जैविक और रासायनिक विज्ञान का एकमात्र संयोजन
✗ 4. प्राकृतिक आपदाओं को नियंत्रित करने के लिए भौतिक विज्ञान के साथ राजनीतिक विचारधाराएँ

Question ID : **4410091083421**
Option 1 ID : **4410094270766**
Option 2 ID : **4410094270764**
Option 3 ID : **4410094270763**
Option 4 ID : **4410094270765**

Q.15 निम्नलिखित में से कौन-सा, आयु-उपयुक्त उपकरण और अधिगम सामग्री होने का लाभ नहीं है?

Ans
✓ 1. नवीनतम प्रवृत्तियों के अनुरूप होता है
✗ 2. विकासात्मक उपलब्धियों को समर्थन प्रदान करता है
✗ 3. बच्चों की सुरक्षा सुनिश्चित करता है
✗ 4. बच्चों की अभिरुचि को बढ़ाता है

Question ID : **441009984262**
Option 1 ID : **4410093889475**
Option 2 ID : **4410093889477**
Option 3 ID : **4410093889474**
Option 4 ID : **4410093889476**

Q.16 निम्नलिखित में से कौन-सा विकल्प छोटे बच्चों को अपने पर्यावरण के बारें में जानने में सहायता करता है?

Ans
✗ 1. अकेले टीवी देखना
✓ 2. बाहरी क्षेत्र में प्रकृति का अन्वेषण करना
✗ 3. बिना चर्चा के संगीत सुनना
✗ 4. घर के अंदर शांतिपूर्वक बैठना

Question ID : **4410091037830**
Option 1 ID : **4410094101875**
Option 2 ID : **4410094101874**
Option 3 ID : **4410094101877**
Option 4 ID : **4410094101876**

Q.17 एक बच्चा लगातार मात्राओं का प्राक्कलन करने में संघर्ष करता है। निम्नलिखित में से कौन-सा अंतर्निहित संज्ञानात्मक कौशल दुर्बल हो सकता है?

Ans
✗ 1. स्थानिक तर्क और प्रतिरूप पहचान
✓ 2. संख्या बोध और मानसिक गणित
✗ 3. शब्दावली विकास
✗ 4. सूक्ष्म गत्यात्मक कौशल

Question ID : **441009984101**
Option 1 ID : **4410093888835**
Option 2 ID : **4410093888836**
Option 3 ID : **4410093888837**
Option 4 ID : **4410093888834**

Q.18 निम्नलिखित में से कौन-से गणितीय तर्क के आवश्यक घटक हैं?

a. अनुमान लगाना (Making conjectures)
b. चिंतन प्रक्रिया का औचित्य सिद्ध न करना (Not justifying thinking process)
c. तार्किक चरणों का पालन करना (Following logical steps)
d. बिना औचित्य के निष्कर्ष पर पहुंचना (Arriving at conclusion without justification)

Ans
✗ 1. b और d
✓ 2. a और c
✗ 3. a और b
✗ 4. b और c

Question ID : **441009984100**
Option 1 ID : **4410093888830**
Option 2 ID : **4410093888831**
Option 3 ID : **4410093888832**
Option 4 ID : **4410093888833**

QuickSarkari.com | WhatsApp Channel | Telegram: t.me/quick_sarkari

Q.19 निम्नलिखित में से कौन-सी गतिविधि, बच्चों में परिवेशी जागरूकता (spatial awareness) विकसित करने में सहायक होती है?

Ans
✗ 1. कहानियां सुनना
✓ 2. ब्लॉक के साथ खेलना
✗ 3. नर्सरी कविताएं गाना
✗ 4. कविताएं पढ़ना

Question ID : **441009984121**
Option 1 ID : **4410093888917**
Option 2 ID : **4410093888915**
Option 3 ID : **4410093888914**
Option 4 ID : **4410093888916**

Q.20 In which process of creativity is self-expression most important?

Ans
✓ 1. Expression view of creativity
✗ 2. Process view of creativity
✗ 3. Real view of creativity
✗ 4. Product aspect of creativity

Question ID : **4410091073370**
Option 1 ID : **4410094230939**
Option 2 ID : **4410094230937**
Option 3 ID : **4410094230938**
Option 4 ID : **4410094230936**

Section : **Discipline2**

Q.1 निम्नलिखित में से कौन-सा पर्यावरण उद्दीपन, वैयक्तिक भिन्नताओं का कारण नहीं है?

Ans
✗ 1. विद्यालयीकरण की प्रकृति
✗ 2. समसमूह के साथ पारस्परिक क्रिया
✗ 3. सामाजिक-आर्थिक स्थिति
✓ 4. आनुवंशिकता में विभिन्नताएँ

Question ID : **441009984606**
Option 1 ID : **4410093890850**
Option 2 ID : **4410093890852**
Option 3 ID : **4410093890851**
Option 4 ID : **4410093890853**

QuickSarkari.com | WhatsApp Channel | Telegram: t.me/quick_sarkari

Q.2 NCF 2005 के अनुसार, प्रारंभिक बाल्यावस्था देखभाल और शिक्षा (ECCE) में अधिगम का आधार क्या माना जाता है?

Ans
✗ 1. अनुशासन
✗ 2. परीक्षा
✗ 3. पठन और लेखन
✓ 4. खेल

Question ID : **4410091084072**
Option 1 ID : **4410094273377**
Option 2 ID : **4410094273380**
Option 3 ID : **4410094273378**
Option 4 ID : **4410094273379**

Q.3 शिक्षाशास्त्र में, CML का पूर्ण रूप क्या है?

Ans
✗ 1. Computer Method of Learning (कंप्यूटर मेथड ऑफ लर्निंग)
✗ 2. Constructivist Mode of Learning (कंस्ट्रक्टिविस्ट मोड ऑफ लर्निंग)
✗ 3. Collaborated Method of Learning (कोलेबोरेटेड मेथड ऑफ लर्निंग)
✓ 4. Computer Managed Learning (कंप्यूटर मैनेज्ड लर्निंग)

Question ID : **441009983951**
Option 1 ID : **4410093888234**
Option 2 ID : **4410093888235**
Option 3 ID : **4410093888237**
Option 4 ID : **4410093888236**

Q.4 चेकलिस्ट अवलोकन, शिक्षकों को _____ की सुविधा देता है।

Ans
✗ 1. निष्क्रिय रूप से सुनने
✗ 2. विवरणों को अनदेखा करने
✗ 3. योजना बनाने से बचने
✓ 4. विशिष्ट व्यवहारों को ट्रैक करने

Question ID : **4410091100210**
Option 1 ID : **4410094338198**
Option 2 ID : **4410094338200**
Option 3 ID : **4410094338201**
Option 4 ID : **4410094338199**

Q.5 निम्नलिखित में से कौन-सी योजना, आंगनवाड़ी केंद्रों के माध्यम से स्वास्थ्य, पोषण और प्रारंभिक अधिगम को एकीकृत करती है?

Ans
✗ 1. राष्ट्रीय क्रेच योजना
✗ 2. राष्ट्रीय पोषण सहायता कार्यक्रम
✗ 3. समग्र शिक्षा अभियान
✓ 4. एकीकृत बाल विकास सेवा (ICDS) योजना

Question ID : **4410091003321**
Option 1 ID : **4410093964979**
Option 2 ID : **4410093964976**
Option 3 ID : **4410093964977**
Option 4 ID : **4410093964978**

QuickSarkari.com | WhatsApp Channel | Telegram: t.me/quick_sarkari

Q.6 पियाजे के संज्ञानात्मक विकास के सिद्धांत के अनुसार, कौन-सी अवधारणा किसी बच्चे की यह समझने की क्षमता को संदर्भित करती है कि वस्तुएं अस्तित्व में बनी रहती हैं?

Ans
✗ 1. संरक्षण (Conservation)
✗ 2. अहंकेंद्रवाद (Egocentrism)
✓ 3. वस्तु स्थायित्व (Object permanence)
✗ 4. स्वांगीकरण (Assimilation)

Question ID : **441009983730**
Option 1 ID : **4410093887350**
Option 2 ID : **4410093887352**
Option 3 ID : **4410093887351**
Option 4 ID : **4410093887353**

Q.7 What do we say if women's pictures are used for cooking in all the pictures of cooking in all the text books of a particular class?

Ans
✗ 1. Societal acceptance
✗ 2. Gender role
✗ 3. Employment oriented
✓ 4. Gender stereotype

Question ID : **441009984415**
Option 1 ID : **4410093890089**
Option 2 ID : **4410093890087**
Option 3 ID : **4410093890088**
Option 4 ID : **4410093890086**

Q.8 ECCE में अल्पकालिक नियोजन को, दीर्घकालिक नियोजन से क्या पृथक करता है?

Ans
✗ 1. यह केवल ऐडमिनिस्ट्रेटर (administrator) के लिए है।
✗ 2. इसमें केवल आकलन विधियां (assessment methods) शामिल हैं।
✓ 3. यह प्रत्येक बच्चे की आवश्यकताओं और रुचियों को संबोधित करता है।
✗ 4. यह वार्षिक बजट पर केंद्रित है।

Question ID : **4410091083240**
Option 1 ID : **4410094270148**
Option 2 ID : **4410094270147**
Option 3 ID : **4410094270146**
Option 4 ID : **4410094270145**

QuickSarkari.com | WhatsApp Channel | Telegram: t.me/quick_sarkari

Q.9 प्रारंभिक बाल्यावस्था में आकलन का उद्देश्य मुख्य रूप से _____ की पहचान करना है।
a. व्यवहारिक परिवर्तन, अभिवृत्ति और कौशल
b. अतिरिक्त सहायता की आवश्यकता वाले बच्चों
c. साक्षरता और गणना में क्षमता
d. शिक्षक-बालक-सहपाठी अंतःक्रिया

Ans
✗ 1. केवल a और b
✗ 2. a, b और c
✗ 3. केवल b और c
✓ 4. a, b और d

Question ID : **441009984657**
Option 1 ID : **4410093891054**
Option 2 ID : **4410093891055**
Option 3 ID : **4410093891056**
Option 4 ID : **4410093891057**

Q.10 अवलोकन में रेटिंग स्केल का उपयोग करने का लाभ _____ है।

Ans
✗ 1. विस्तृत जानकारी प्रदान करना
✗ 2. अभिनति को कम करना
✓ 3. वस्तुनिष्ठ रिकॉर्डिंग की सुविधा देना
✗ 4. वैधता को बढ़ाना

Question ID : **441009983797**
Option 1 ID : **4410093887619**
Option 2 ID : **4410093887620**
Option 3 ID : **4410093887618**
Option 4 ID : **4410093887621**

Q.11 ECCE पाठ्यचर्या डिजाइन करते समय निम्नलिखित में से किस पर विचार किया जाना चाहिए?

Ans
✗ 1. दृढ़, सभी के लिए एक समान उपागम पर
✗ 2. केवल संज्ञानात्मक विकास पर
✗ 3. वयस्क-केंद्रित अधिगम अनुभव पर
✓ 4. विकास के प्रत्येक उप-चरण में बच्चों की विशेषताओं पर

Question ID : **441009983665**
Option 1 ID : **4410093887091**
Option 2 ID : **4410093887090**
Option 3 ID : **4410093887093**
Option 4 ID : **4410093887092**

Q.12 इतिहास के अनुसार, स्वतंत्रता-पूर्व भारत में ECCE, _____ से अत्यन्त प्रभावित था।

Ans
✓ 1. मारिया मोंटेसरी (Maria Montessori)
✗ 2. रुक्मणि अरुंडेल (Rukmani Arundale)
✗ 3. तारा बाई मोदक (Tara Bai Modak)
✗ 4. एनी बेसेंट (Annie Besant)

Question ID : **441009984690**
Option 1 ID : **4410093891188**
Option 2 ID : **4410093891187**
Option 3 ID : **4410093891189**
Option 4 ID : **4410093891186**

QuickSarkari.com | WhatsApp Channel | Telegram: t.me/quick_sarkari

Q.13 निम्नलिखित में से कौन-सी, विशेष-आवश्यकता वाले बच्चों के लिए समावेशी शिक्षा की हानि है?

Ans
✔ 1. बच्चों और शिक्षकों को यह सुनिश्चित करने के लिए संवेदनशील बनाता है कि उनके साथ भेदभाव हुआ है
✘ 2. कक्षा में बच्चों के लिए उनकी क्षमता और रुचि के अनुसार लक्ष्य निर्धारित करता है
✘ 3. प्रत्येक बच्चे की शैक्षिक क्षमता को अधिकतम करता है
✘ 4. नियमित विद्यालयों में समान शैक्षिक अवसरों के लिए CWSN के अधिकार को सुनिश्चित करता है

Question ID : **441009984569**
Option 1 ID : **4410093890704**
Option 2 ID : **4410093890705**
Option 3 ID : **4410093890703**
Option 4 ID : **4410093890702**

Q.14 महात्मा गांधी _____ की अपेक्षा रखते थे।

Ans
✘ 1. बच्चों से शिक्षा में प्रभावशाली भूमिका निभाने
✘ 2. माता-पिता से शिक्षा में महत्वपूर्ण भूमिका निभाने
✘ 3. रिश्तेदारों से शिक्षा में महत्वपूर्ण भूमिका निभाने
✔ 4. शिक्षकों से शिक्षा में प्रभावशाली भूमिका निभाने

Question ID : **441009983684**
Option 1 ID : **4410093887166**
Option 2 ID : **4410093887168**
Option 3 ID : **4410093887169**
Option 4 ID : **4410093887167**

Q.15 विविध क्षमताओं वाले बच्चों के मूल्यांकन का उद्देश्य क्या है?

Ans
✘ 1. दुर्बलताओं की पहचान करने के एक साधन के रूप में
✘ 2. बच्चों को उनके प्राप्तांकों के अनुसार रैंकिंग देना
✔ 3. अधिगम को सुदृढ़ बनाने के लिए सार्थक और निरंतर फीडबैक प्रदान करना
✘ 4. सभी क्षमताओं को एक ही संचयी ग्रेड के माध्यम से दर्शाना

Question ID : **441009984603**
Option 1 ID : **4410093890839**
Option 2 ID : **4410093890838**
Option 3 ID : **4410093890840**
Option 4 ID : **4410093890841**

Q.16 What is the basic principle of Developmentally Appropriate Practice in ECCE?

Ans
✘ 1. Emphasising rapid progression for all children
✔ 2. Using teaching methods and materials age appropriately
✘ 3. Teaching above maturation level
✘ 4. Applying the concept of one-size-fits-all

Question ID : **441009983760**
Option 1 ID : **4410093887472**
Option 2 ID : **4410093887473**
Option 3 ID : **4410093887470**
Option 4 ID : **4410093887471**

QuickSarkari.com | WhatsApp Channel | Telegram: t.me/quick_sarkari

Q.17 नीचे दो कथन दिए गए हैं। निम्नलिखित कथनों की सत्य या असत्य के रूप में पहचान कीजिए।

A) शिक्षकों से अपेक्षा की जाती है कि वे पाठ्यचर्या में प्रत्येक अवधारणा या कौशल को विविध तरीकों से संबोधित करें।
B) प्रारंभिक बाल्यावस्था शिक्षा की अधिगम प्रक्रिया में परिवार की भागीदारी को अप्रासंगिक माना जाता है।

Ans
✗ 1. कथन A और B दोनों सत्य हैं
✗ 2. कथन A असत्य है, कथन B सत्य है
✗ 3. कथन A और B दोनों असत्य हैं
✓ 4. कथन A सत्य है, कथन B असत्य है

Question ID : **441009983631**
Option 1 ID : **4410093886955**
Option 2 ID : **4410093886954**
Option 3 ID : **4410093886957**
Option 4 ID : **4410093886956**

Q.18 What role do educators play in ECCE, according to its principles?

Ans
✗ 1. Classroom managers
✗ 2. Sole decision-makers
✓ 3. Facilitators of learning
✗ 4. Test administrators

Question ID : **441009983735**
Option 1 ID : **4410093887373**
Option 2 ID : **4410093887370**
Option 3 ID : **4410093887371**
Option 4 ID : **4410093887372**

Q.19 भारत में पूर्व-प्राथमिक शिक्षा, शैक्षिक सफलता की प्रारंभिक आधारशिलाओं को विकसित करने में सहायता करती है। नीचे पूर्व-प्राथमिक शिक्षा के संबंध में 3 प्रमुख महत्वपूर्ण बिंदु दिए गए हैं।

I. रंगों और संख्याओं का अधिगम
II. पैटर्न को समझना और यह समझना कि मुद्रित शब्द अर्थपूर्ण होते हैं
III. बच्चों को सामाजिकता (साझा करना और देखभाल करना) में सहायता करती है

विकल्पों में से चतुर्थ महत्वपूर्ण बिंदु पहचानिए।

Ans
✗ 1. उन्हें रचनात्मक बनने में सहायता करती है
✗ 2. बच्चों को अच्छी लिखावट विकसित करने में सहायता करती है
✗ 3. बच्चों को अंग्रेजी बोलने का प्रशिक्षण देना
✓ 4. किसी बच्चे में यदि कोई अक्षमता या निःशक्तता है, तो उसकी पहचान कम आयु में की जा सकती है।

Question ID : **441009984678**
Option 1 ID : **4410093891140**
Option 2 ID : **4410093891139**
Option 3 ID : **4410093891141**
Option 4 ID : **4410093891138**

Q.20 Which of the following measures is NOT suitable for successful inclusion at the preschool level?

Ans
✗ 1. The physical environment of the centre must be barrier free.

✗ 2. The curriculum must be flexible and accessible.

✗ 3. The assessment and evaluation procedures should be made flexible.

✓ 4. The classrooms must have steps to improve their motor skills.

Question ID : **4410099846 10**
Option 1 ID : **4410093890867**
Option 2 ID : **4410093890866**
Option 3 ID : **4410093890868**
Option 4 ID : **4410093890869**

Section : **Discipline3**

Q.1 निम्नलिखित में से कौन-से कथन सत्य हैं या असत्य हैं?
कथन 1: आयु-उपयुक्त योग गतिविधियों का शिक्षार्थी की एकाग्रता क्षमता पर कोई प्रभाव नहीं पड़ता है।
कथन 2: योग गतिविधियाँ शिक्षार्थियों को अपने विचारों और भावनाओं के प्रति अधिक सचेत करने में सहायता करती हैं।

Ans
✗ 1. कथन 1 सत्य है और कथन 2 असत्य है।

✓ 2. कथन 1 असत्य है और कथन 2 सत्य है।

✗ 3. दोनों कथन असत्य हैं।

✗ 4. दोनों कथन सत्य हैं।

Question ID : **4410099841 88**
Option 1 ID : **4410093889184**
Option 2 ID : **4410093889185**
Option 3 ID : **4410093889183**
Option 4 ID : **4410093889182**

Q.2 Which of the following is considered material for imaginative or dramatic play?

Ans
✗ 1. Flash cards

✓ 2. Dolls, kitchen sets, masks

✗ 3. Sound boxes

✗ 4. Beads and thread

Question ID : **4410091088064**
Option 1 ID : **4410094289756**
Option 2 ID : **4410094289758**
Option 3 ID : **4410094289757**
Option 4 ID : **4410094289759**

QuickSarkari.com | WhatsApp Channel | Telegram: t.me/quick_sarkari

Q.3 शिशु को बचाव श्वास (rescue breaths) देते समय निम्नलिखित में से कौन-सा पहला चरण है?

Ans ✔ 1. अपना मुँह शिशु की नाक और मुँह पर रखें और कसकर बंद करें

✘ 2. हवा के दो छोटे-छोटे झोंके दें

✘ 3. स्थिति बदलें और फिर से साँस के लिए कोशिश करें

✘ 4. छाती पर 30 बार दबाव डालें

Question ID : **441009984168**
Option 1 ID : **4410093889105**
Option 2 ID : **4410093889104**
Option 3 ID : **4410093889103**
Option 4 ID : **4410093889102**

Q.4 निम्न को बाह्य उपकरण और आंतरिक उपकरण के रूप में वर्गीकृत कीजिए। बाह्य उपकरण के लिए O और आंतरिक उपकरण के लिए I अंकित कीजिए।

a) बालू का गड्ढा (Sand pit)
b) कोलाज सामग्री (Collage material)
c) जंगल-जिम (Jungle-gyms)
d) ज़ाइलोफ़ोन (Xylophone)

Ans ✔ 1. a - O, b - I, c - O, d - I

✘ 2. a - I, b - O, c - O, d - O

✘ 3. a - O, b - O, c - I, d - O

✘ 4. a - I, b - O, c - I, d - O

Question ID : **441009984314**
Option 1 ID : **4410093889682**
Option 2 ID : **4410093889685**
Option 3 ID : **4410093889684**
Option 4 ID : **4410093889683**

Q.5 निम्नलिखित शरीरक्रियात्मक प्रकार्य, प्रायः जन्म से वयस्कता तक किस कालानुक्रमिक क्रम में होते हैं?

i) कार्य करने और शारीरिक ऊष्मा संधारण के लिए ऊर्जा प्रदान करना
ii) शरीर की वृद्धि के लिए सामग्री प्रदान करना
iii) हमारे शरीर की क्षतिग्रस्त कोशिकाओं और ऊतकों की मरम्मत के लिए सामग्री प्रदान करना
iv) जनन के लिए आवश्यक सामग्री का निर्माण करना

Ans ✘ 1. i, ii, iii, iv

✘ 2. i, iii, ii, iv

✔ 3. ii, i, iii, iv

✘ 4. ii, iii, i, iv

Question ID : **441009984151**
Option 1 ID : **4410093889035**
Option 2 ID : **4410093889037**
Option 3 ID : **4410093889034**
Option 4 ID : **4410093889036**

QuickSarkari.com | WhatsApp Channel | Telegram: t.me/quick_sarkari

Q.6 सामाजिक कौशल विकसित करने के लिए किस प्रकार के खेल आवश्यक हैं?

Ans ✔ 1. सहयोगशील खेल (Cooperative play)

✘ 2. समानांतर खेल (Parallel play)

✘ 3. एकांतिक खेल (Solitary play)

✘ 4. प्रतियोगी खेल (Competitive play)

Question ID : **441009984310**
Option 1 ID : **4410093889668**
Option 2 ID : **4410093889667**
Option 3 ID : **4410093889666**
Option 4 ID : **4410093889669**

Q.7 बच्चों के मस्तिष्क का विकास न केवल स्वास्थ्य, पोषण और देखभाल की गुणवत्ता से प्रभावित होता है, बल्कि एक और महत्वपूर्ण कारक से भी प्रभावित होता है। चतुर्थ कारक की पहचान कीजिए।

Ans ✔ 1. मनो-सामाजिक परिवेश

✘ 2. धार्मिक पृष्ठभूमि

✘ 3. भौगोलिक परिस्थितियाँ

✘ 4. माता-पिता की भाषाई क्षमता

Question ID : **441009984683**
Option 1 ID : **4410093891158**
Option 2 ID : **4410093891160**
Option 3 ID : **4410093891161**
Option 4 ID : **4410093891159**

Q.8 प्रारंभिक भाषा, साक्षरता और _____ के अधिगम के आधार को बेहतर बनाने और बढ़ावा देने के लिए, भारत सरकार द्वारा 2014 में "पढ़े भारत, बढ़े भारत" योजना शुरू की गई थी। दिए गए विकल्पों में से, अधिगम के लिए तीसरे आधार की पहचान कीजिए।

Ans ✘ 1. स्थानीय भाषा

✘ 2. विज्ञान

✘ 3. पर्यावरण अध्ययन

✔ 4. गणना

Question ID : **441009984708**
Option 1 ID : **4410093891259**
Option 2 ID : **4410093891260**
Option 3 ID : **4410093891261**
Option 4 ID : **4410093891258**

Q.9 राष्ट्रीय प्रारंभिक बाल्यावस्था देखभाल एवं शिक्षा नीति 2013 का उद्देश्य _____ से कम आयु के बच्चों के लिए _____ तथा सक्रिय अधिगम क्षमता प्राप्त करना है।

Ans ✘ 1. 1-2 माह; नवजात शिशुओं की संपूर्ण देखभाल

✔ 2. 6 वर्ष; समग्र विकास

✘ 3. 8 वर्ष; शारीरिक विकास

✘ 4. 3 वर्ष; सस्ती स्वास्थ्य देखभाल और पोषण

Question ID : **441009984693**
Option 1 ID : **4410093891200**
Option 2 ID : **4410093891198**
Option 3 ID : **4410093891201**
Option 4 ID : **4410093891199**

Q.10 शिक्षक किस प्रकार का अवलोकन कर सकते हैं?

Ans
✗ 1. व्यक्तिपरक और पक्षपाती अवलोकन
✓ 2. स्वतःस्फूर्त और योजनाबद्ध अवलोकन
✗ 3. अनियमित और दुर्लभ अवलोकन
✗ 4. चिकित्सा और मनोवैज्ञानिक अवलोकन

Question ID : **441009983840**
Option 1 ID : **4410093887790**
Option 2 ID : **4410093887792**
Option 3 ID : **4410093887793**
Option 4 ID : **4410093887791**

Q.11 वर्तमान भारत में, सभी बच्चों के इष्टतम विकास को सुनिश्चित करने हेतु, एक सुनियोजित _____ बनाने की आवश्यकता है, जिसमें विकासात्मक रूप से उपयुक्त ज्ञान और कौशल शामिल हों तथा जिसमें युवा बच्चों की संदर्भगत और विविध आवश्यकताओं के लिए _____हो।

Ans
✓ 1. पाठ्यचर्या की रूपरेखा; नम्यता (curriculum framework; flexibility)
✗ 2. पाठ्यक्रम; अनम्यता (syllabus; rigidity)
✗ 3. संकल्पनाएं; विभिन्नता (concepts; variation)
✗ 4. विषयवस्तु; नम्यता (content; flexible)

Question ID : **441009984627**
Option 1 ID : **4410093890934**
Option 2 ID : **4410093890935**
Option 3 ID : **4410093890937**
Option 4 ID : **4410093890936**

Q.12 ECCE केंद्र में, आउटडोर खेल परिसर (Outdoor facilities), _____।

Ans
✗ 1. मूल्यवान खेल सामग्री से सुसज्जित होने चाहिए
✗ 2. यथासंभव बड़े होने चाहिए
✓ 3. ऐसे होने चाहिए जिनमें विद्यार्थियों को उनकी कल्पना और रचनात्मकता का उपयोग करने के अवसर मिलें
✗ 4. पूरी तरह से लॉन से ढकी होने चाहिए

Question ID : **441009984372**
Option 1 ID : **4410093889917**
Option 2 ID : **4410093889915**
Option 3 ID : **4410093889914**
Option 4 ID : **4410093889916**

Q.13 5-12 वर्ष के बच्चे नियमों को समझते हैं और इसलिए _____ पसंद करते हैं।

Ans
✗ 1. कलर मैचिंग गेम्स
✗ 2. तिपहिया साइकिल चलाना
✓ 3. फुटबॉल और बास्केटबॉल जैसे खेल
✗ 4. गुंथी हुई मिट्टी या आटे से खेलना

Question ID : **441009984317**
Option 1 ID : **4410093889697**
Option 2 ID : **4410093889695**
Option 3 ID : **4410093889694**
Option 4 ID : **4410093889696**

QuickSarkari.com | WhatsApp Channel | Telegram: t.me/quick_sarkari

Q.14 विकासात्मक रूप से उपयुक्त क्रीड़ा सामग्री का आवश्यक अभिलक्षण निम्नलिखित में से क्या नहीं है?

Ans
✗ 1. आसानी से अभिगम्य
✗ 2. सुरक्षित और स्वच्छ
✗ 3. पर्याप्त मात्रा में
✓ 4. खतरनाक और चुनौतीपूर्ण

Question ID : **4410091088038**
Option 1 ID : **4410094289658**
Option 2 ID : **4410094289657**
Option 3 ID : **4410094289659**
Option 4 ID : **4410094289656**

Q.15 ECCE ने बच्चों के दीर्घकालिक विकास और अधिगम में सकारात्मक योगदान दिया है।
ECCE ने, अपनी प्राथमिकता के रूप में 6 वर्ष से कम आयु के बच्चों को क्यों चुना है?

Ans
✗ 1. क्योंकि बच्चों को पारिवारिक परिवेश के अतिरिक्त मैत्रीपूर्ण सामाजिक परिवेश में लाना आवश्यक होता है
✗ 2. क्योंकि बच्चों को प्रारंभिक आयु से ही औपचारिक शिक्षा की आवश्यकता होती है
✓ 3. क्योंकि मानव मस्तिष्क जन्म के बाद तीव्र गति से वृद्धि करता है और 6 वर्ष की आयु के बाद स्थिर हो जाता है
✗ 4. क्योंकि बच्चों में प्रारंभिक आयु में ही वांछित भाषाई और कलात्मक कौशल विकसित करना और उन्हें भविष्य की प्रतियोगिताओं के लिए तैयार करना होता है

Question ID : **441009984667**
Option 1 ID : **4410093891096**
Option 2 ID : **4410093891095**
Option 3 ID : **4410093891094**
Option 4 ID : **4410093891097**

Q.16 ECCE व्यवस्थापन में, बच्चों के व्यवहार के अवलोकन को उचित रूप से अभिलेखित करने के लिए, दिए गए विकल्पों में से कौन-सा विकल्प अनिवार्य माना जा सकता है?

Ans
✓ 1. व्यवस्थित और संगठित तरीके से अवलोकनों का प्रलेखन करना
✗ 2. बिना कोई नोट (notes) लिए अवलोकन करना
✗ 3. केवल नकारात्मक व्यवहार का अभिलेखन करना
✗ 4. केवल ध्वनि अभिलेखन का उपयोग करना

Question ID : **441009983828**
Option 1 ID : **4410093887743**
Option 2 ID : **4410093887745**
Option 3 ID : **4410093887744**
Option 4 ID : **4410093887742**

Q.17 What is the role of imagination in a child's play?

Ans
✗ 1. To develop motor skills
✓ 2. To create a fantasy world
✗ 3. To develop mathematical skills
✗ 4. To replicate real-life scenarios

Question ID : **441009984271**
Option 1 ID : **4410093889512**
Option 2 ID : **4410093889513**
Option 3 ID : **4410093889511**
Option 4 ID : **4410093889510**

Q.18 प्रारंभिक बाल्यावस्था शिक्षा में, योजना का प्राथमिक लक्ष्य निम्नलिखित में से क्या होता है?

Ans
✔ 1. समग्र विकास के लिए अधिगम लायक वातावरण तैयार करना
✘ 2. शैक्षणिक उपलब्धि के लिए क्रियाकलापों को संरचित करना
✘ 3. बच्चों को प्रतियोगी परीक्षाओं के लिए तैयार करना
✘ 4. यह सुनिश्चित करना कि बच्चे एक सख्त दिनचर्या का अनुसरण करें

Question ID : **4410099838 17**
Option 1 ID : **4410093887701**
Option 2 ID : **4410093887700**
Option 3 ID : **4410093887699**
Option 4 ID : **4410093887698**

Q.19 ECCE केंद्रों में किस प्रकार की सामग्री को प्राथमिकता दी जानी चाहिए?

Ans
✔ 1. बहुउद्देश्यीय और अनुकूलनीय सामग्रियों को
✘ 2. अपर्यवेक्षित डिजिटल उपकरणों को
✘ 3. आयातित और महंगी सामग्रियों को
✘ 4. वयस्क प्रशिक्षण की सामग्रियों को

Question ID : **4410091088056**
Option 1 ID : **4410094289729**
Option 2 ID : **4410094289731**
Option 3 ID : **4410094289728**
Option 4 ID : **4410094289730**

Q.20 नारियल के दो खोलों में छिद्र करके उनमें से एक डोरी निकाल कर और उसके दोनों सिरों पर गाँठें लगाकर एक वाद्य यंत्र बनाया जाता है, जिसे _____ कहा जाता है।

Ans
✘ 1. झाँझ (cymbals)
✘ 2. रैटल (rattles)
✘ 3. ड्रम (drum)
✔ 4. झुनझुना (jhunjuna)

Question ID : **4410091073365**
Option 1 ID : **4410094230917**
Option 2 ID : **4410094230916**
Option 3 ID : **4410094230919**
Option 4 ID : **4410094230918**

Section : **Discipline4**

QuickSarkari.com | WhatsApp Channel | Telegram: t.me/quick_sarkari

Q.1 The teacher can use _____ to share observations about the child's abilities and potentialities to the parents so that they know, understand and accept the child as he/she is.

Ans
✗ 1. misbehaviour records
✓ 2. anecdotal records
✗ 3. progress reports
✗ 4. report cards

Question ID : **441009984391**
Option 1 ID : **4410093889993**
Option 2 ID : **4410093889990**
Option 3 ID : **4410093889992**
Option 4 ID : **4410093889991**

Q.2 Children learn by doing and engaging in a variety of activities because:

Ans
✓ 1. Cognitive development is sequential
✗ 2. Physical development is sequential
✗ 3. Growth is sequential
✗ 4. Children love to play

Question ID : **441009984493**
Option 1 ID : **4410093890400**
Option 2 ID : **4410093890401**
Option 3 ID : **4410093890399**
Option 4 ID : **4410093890398**

Q.3 ECCE केंद्र के लिए संसाधन संग्रहण के कौन-से तरीके अनुशंसित हैं?

Ans
✗ 1. केवल सरकारी वित्तपोषण
✗ 2. बैंक ऋण का उपयोग
✗ 3. केवल निजी वित्तपोषण
✓ 4. सामुदायिक भागीदारी एवं सहभागिता

Question ID : **441009983696**
Option 1 ID : **4410093887214**
Option 2 ID : **4410093887217**
Option 3 ID : **4410093887215**
Option 4 ID : **4410093887216**

Q.4 खेल सामग्री का दृढ़ और अच्छी तरह से डिज़ाइन किया जाना क्यों महत्वपूर्ण है?

Ans
✗ 1. केंद्र की सजावट से सुमेलन के लिए
✓ 2. यह सुनिश्चित करने के लिए कि वे लंबे समय तक और नियमित उपयोग में टिकें रहें
✗ 3. उनका भार कम करने के लिए
✗ 4. उन्हें आकर्षक बनाने के लिए

Question ID : **441009983933**
Option 1 ID : **4410093888164**
Option 2 ID : **4410093888163**
Option 3 ID : **4410093888165**
Option 4 ID : **4410093888162**

QuickSarkari.com | WhatsApp Channel | Telegram: t.me/quick_sarkari

Q.5 ECCE केंद्र में किसी कार्यक्रम की योजना बनाने का प्राथमिक उद्देश्य क्या है?

Ans
✗ 1. विद्यालय प्रबंधन को सूचित करना
✗ 2. बच्चों को दिन भर व्यस्त रखना
✗ 3. विद्यार्थी डायरी में लिखना और अभिभावकों को प्रभावित करना
✓ 4. बच्चों के विकास और अधिगम में सहायता करना

Question ID : **441009983751**
Option 1 ID : **4410093887435**
Option 2 ID : **4410093887436**
Option 3 ID : **4410093887434**
Option 4 ID : **4410093887437**

Q.6 प्रारंभिक बाल्यावस्था पेशे की आवश्यकताओं और मांगों को पूरा करने के लिए _____ में निरंतर सुधार के लिए प्रयास करना ईसीसीई (ECCE) शिक्षकों का एक प्रमुख गुण है।

Ans
✓ 1. ज्ञान और कौशल
✗ 2. शिक्षण और प्रशिक्षण
✗ 3. अधिगम और अनुभव
✗ 4. योग्यता और प्रमाणन

Question ID : **441009984402**
Option 1 ID : **4410093890036**
Option 2 ID : **4410093890034**
Option 3 ID : **4410093890035**
Option 4 ID : **4410093890037**

Q.7 Which of the following is NOT recommended as a strategy to communicate with parents in ECCE settings?

Ans
✗ 1. Home Visits
✗ 2. Parent-Teacher Meeting
✓ 3. Newspapers
✗ 4. Newsletters

Question ID : **441009984338**
Option 1 ID : **4410093889779**
Option 2 ID : **4410093889781**
Option 3 ID : **4410093889780**
Option 4 ID : **4410093889778**

Q.8 It can be stated that _____ is the aim for project/inquiry-based approach.

Ans
✗ 1. combined study
✓ 2. self-learning
✗ 3. independent study
✗ 4. play method

Question ID : **441009983915**
Option 1 ID : **4410093888092**
Option 2 ID : **4410093888091**
Option 3 ID : **4410093888093**
Option 4 ID : **4410093888090**

QuickSarkari.com | WhatsApp Channel | Telegram: t.me/quick_sarkari

Q.9 बच्चों को व्यस्त रखना और उन्हें पुनः निर्देशित करना सुरक्षा बनाए रखने में किस प्रकार सहायक होता है?

Ans
✗ 1. वयस्कों के हस्तक्षेप को न्यूनतम करके

✗ 2. उन्हें क्या करना है, इस बारे में सख्त निर्देश देकर

✓ 3. उनका ध्यान सुरक्षित और उचित गतिविधियों पर केंद्रित रखके

✗ 4. उन्हें अपने संघर्षों को स्वयं सुलझाने देकर

Question ID : **441009984258**
Option 1 ID : **4410093889461**
Option 2 ID : **4410093889458**
Option 3 ID : **4410093889459**
Option 4 ID : **4410093889460**

Q.10 Match the following geometric concepts with the appropriate activities.

1. Understanding shapes a. Using a ruler
2. Measuring length b. Playing with shape sorters
3. Recognising patterns c. Filling and emptying containers
4. Understanding volume d. Creating bead necklaces

Ans
✗ 1. 1-d, 2-c, 3-b, 4-a

✗ 2. 1-a, 2-b, 3-c, 4-d

✓ 3. 1-b, 2-a, 3-d, 4-c

✗ 4. 1-c, 2-d, 3-a, 4-b

Question ID : **441009984057**
Option 1 ID : **4410093888661**
Option 2 ID : **4410093888658**
Option 3 ID : **4410093888660**
Option 4 ID : **4410093888659**

Q.11 नीचे दो कथन दिए गए हैं। उस विकल्प का चयन कीजिए जो सही ढंग से यह पहचान करता है कि इनमें से कौन-से कथन सत्य/असत्य हैं।

A. विभेदीकृत अनुदेशन में बच्चों के छोटे समूहों के लिए अलग-अलग गतिविधियों का नियोजन शामिल हो सकता है।
B. नियोजन में पाठ से संबंधित कक्षा प्रदर्शनों की व्यवस्था को शामिल नहीं किया जाना चाहिए।

Ans
✗ 1. कथन A और B दोनों सत्य हैं

✓ 2. कथन A सत्य है, परन्तु कथन B असत्य है

✗ 3. कथन A असत्य है, परन्तु कथन B सत्य है

✗ 4. कथन A और B दोनों असत्य हैं

Question ID : **441009983575**
Option 1 ID : **4410093886731**
Option 2 ID : **4410093886732**
Option 3 ID : **4410093886730**
Option 4 ID : **4410093886733**

QuickSarkari.com | WhatsApp Channel | Telegram: t.me/quick_sarkari

Q.12 In pedagogical approaches recommended for early childhood education, when knowledge is imparted to the students in terms of academic concepts, the teacher can make use of _____.

Ans
✗ 1. writing activities
✓ 2. play activities
✗ 3. laboratory method
✗ 4. research method

Question ID : **441009983922**
Option 1 ID : **4410093888120**
Option 2 ID : **4410093888121**
Option 3 ID : **4410093888119**
Option 4 ID : **4410093888118**

Q.13 निम्नलिखित में से किसे शिक्षण प्रक्रिया का एक अनिवार्य घटक माना जाता है?

Ans
✓ 1. संप्रेषण और अंत:क्रिया
✗ 2. विद्यार्थी की आज्ञाकारिता
✗ 3. शिक्षक का प्राधिकार
✗ 4. केवल पाठ्यक्रम पूरा कराना

Question ID : **4410091083441**
Option 1 ID : **4410094270846**
Option 2 ID : **4410094270845**
Option 3 ID : **4410094270844**
Option 4 ID : **4410094270843**

Q.14 ECCE केंद्र में मानव संसाधन का घटक, निम्नलिखित में से कौन नहीं है?

Ans
✗ 1. ECCE सहायक
✓ 2. ECCE कार्यकर्ता का परिवार
✗ 3. बच्चों के माता-पिता
✗ 4. ECCE कार्यकर्ता

Question ID : **441009983736**
Option 1 ID : **4410093887375**
Option 2 ID : **4410093887377**
Option 3 ID : **4410093887376**
Option 4 ID : **4410093887374**

Q.15 बच्चे को अपने वाचन कौशल और मौखिक अभिव्यक्ति विकसित करने के लिए, किन गतिविधियों में शामिल होने की आवश्यकता होती है?

Ans
✗ 1. शारीरिक, क्षेत्र-आधारित और सामाजिक गतिविधियां
✗ 2. ध्वनि भेदन, श्रवण अवधि, श्रवण बोध
✗ 3. सूक्ष्म मांसपेशी विकास, नेत्र और हाथ का समन्वय, अक्षर बोध
✓ 4. वार्तालाप, कहानी सुनाना, नाटकीकरण

Question ID : **441009984328**
Option 1 ID : **4410093889740**
Option 2 ID : **4410093889739**
Option 3 ID : **4410093889738**
Option 4 ID : **4410093889741**

QuickSarkari.com | WhatsApp Channel | Telegram: t.me/quick_sarkari

Q.16 निम्नलिखित में से कौन-सा, प्रभावी संप्रेषण के लिए आवश्यक है?

Ans
✗ 1. गतिकी (Kinesics)
✓ 2. पारस्परिक अभिरुचि (Mutual interest)
✗ 3. पारस्परिक विश्वास (Mutual trust)
✗ 4. सामीप्यकी (Proxemics)

Question ID : **441009984383**
Option 1 ID : **4410093889961**
Option 2 ID : **4410093889960**
Option 3 ID : **4410093889958**
Option 4 ID : **4410093889959**

Q.17 रेजियो एमिलिया (Reggio Emilia) दृष्टिकोण, _____ अधिगम पर बल देता है, जो अधिगम के लिए बच्चे को अपनी सभी इंद्रियों और अपनी सभी भाषाओं का उपयोग करने की अनुमति देता है।

Ans
✗ 1. प्रेक्षणमूलक (observational)
✗ 2. काल्पनिक (fictional)
✗ 3. निर्देशित (directed)
✓ 4. प्रायोगिक खोज (hands-on discovery)

Question ID : **441009984449**
Option 1 ID : **4410093890225**
Option 2 ID : **4410093890224**
Option 3 ID : **4410093890223**
Option 4 ID : **4410093890222**

Q.18 It can be stated that activity-based learning approach is regarded as one of the approaches, which promotes _____ skills.

Ans
✓ 1. analytical
✗ 2. memorising
✗ 3. learning
✗ 4. writing

Question ID : **441009983917**
Option 1 ID : **4410093888099**
Option 2 ID : **4410093888098**
Option 3 ID : **4410093888101**
Option 4 ID : **4410093888100**

QuickSarkari.com | WhatsApp Channel | Telegram: t.me/quick_sarkari

Q.19 खिलौनों एवं सामग्रियों का मिलान उचित आयु वर्ग से कीजिए।

. पुराने टायर a) 0 से 2 वर्ष
. बड़ी गेंदें b) 2 से 4 वर्ष
. स्लाइड, मैरी गो राउंड जैसे झूले c) 10 वर्ष
. बोर्ड गेम d) 4 से 6 वर्ष

Ans
✔ 1. 1 - b, 2 - a, 3 - d, 4 - c
✘ 2. 1 - a, 2 - d, 3 - b, 4 - c
✘ 3. 1 - d, 2 - c, 3 - b, 4 - a
✘ 4. 1 - c, 2 - d, 3 - a, 4 - b

Question ID : **441009984290**
Option 1 ID : **4410093889586**
Option 2 ID : **4410093889587**
Option 3 ID : **4410093889588**
Option 4 ID : **4410093889589**

Q.20 नियमों के साथ खेलों के पियाजे के चरण समान्यतः आयु सीमा _____ से शुरू होता है।

Ans
✔ 1. 7-11 वर्ष
✘ 2. 0-2 वर्ष
✘ 3. 11-15 वर्ष
✘ 4. 2-7 वर्ष

Question ID : **441009983832**
Option 1 ID : **4410093887760**
Option 2 ID : **4410093887758**
Option 3 ID : **4410093887761**
Option 4 ID : **4410093887759**

Section : **Discipline5**

Q.1 संप्रेषण विकार (communication disorder) वाले बच्चे की पहचान करने के लिए शिक्षक द्वारा किस आकलन विधि का उपयोग किया जा सकता है?

Ans
✘ 1. IQ परीक्षण
✘ 2. अवलोकन
✘ 3. साक्षात्कार
✔ 4. शारीरिक परीक्षण और अवलोकन

Question ID : **441009984759**
Option 1 ID : **4410093891465**
Option 2 ID : **4410093891463**
Option 3 ID : **4410093891462**
Option 4 ID : **4410093891464**

QuickSarkari.com | WhatsApp Channel | Telegram: t.me/quick_sarkari

Q.2 Identify the role of teacher in the given example. The teacher should _____.
The teacher is seen as a facilitator. She arranges the environment and prepares activities and experiences appropriate to the developmental level of the children in the class.

Ans
✔ 1. provide 'Discovery Learning' opportunity
✘ 2. direct children what they need to do
✘ 3. be engaged in preparing for the next class
✘ 4. not possess any role in the classroom

Question ID : **441009984436**
Option 1 ID : **4410093890170**
Option 2 ID : **4410093890171**
Option 3 ID : **4410093890172**
Option 4 ID : **4410093890173**

Q.3 लिंग भूमिकाएं (Gender roles) निम्नलिखित में से किसके माध्यम से सीखी जाती हैं?

Ans
✘ 1. हार्मोनल परिवर्तन (hormonal changes)
✘ 2. शारीरिक विकास (physical development)
✔ 3. सामाजिक संपर्क (social interaction)
✘ 4. आनुवंशिक वंशागति (genetic inheritance)

Question ID : **4410091096517**
Option 1 ID : **4410094323459**
Option 2 ID : **4410094323460**
Option 3 ID : **4410094323458**
Option 4 ID : **4410094323457**

Q.4 ई.सी.ई.(ECE) कार्यक्रम माता-पिता को यह समझने में मदद करते हैं कि _____ ।

Ans
✘ 1. बचपन में पढ़ना-लिखना सख्ती से सिखाया जाना चाहिए
✔ 2. बहुत जल्दी शैक्षणिक शिक्षा थोपना नुकसानदेह हो सकता है
✘ 3. होमवर्क रोज़ाना दिया जाना चाहिए
✘ 4. प्रीस्कूल में पाठ्यक्रम का बोझ बढ़ाया जाना चाहिए

Question ID : **4410091088145**
Option 1 ID : **4410094290080**
Option 2 ID : **4410094290081**
Option 3 ID : **4410094290083**
Option 4 ID : **4410094290082**

Q.5 'बालापराधी (juvenile delinquent)' कौन होता है?

Ans
✘ 1. निम्न समाजर्थिक अवस्था वाला व्यक्ति
✘ 2. बेहतर गत्यात्मकता क्षमता और अल्प स्टटरिंग (stuttering) वाला व्यक्ति
✔ 3. 18 वर्ष से निम्न आयु में अपराध करने वाला व्यक्ति
✘ 4. अवसाद और निष्कासन के प्रति अतिसक्रिय, आवेगी प्रतिक्रियाओं वाला व्यक्ति

Question ID : **441009984748**
Option 1 ID : **4410093891421**
Option 2 ID : **4410093891418**
Option 3 ID : **4410093891420**
Option 4 ID : **4410093891419**

QuickSarkari.com | WhatsApp Channel | Telegram: t.me/quick_sarkari

Q.6 ई.सी.ई. (ECE) कार्यक्रमों के अनुसार, बच्चे का प्रथम शिक्षक किसे माना जाता है?

Ans
✗ 1. समुदाय के सदस्य (Community Members)
✓ 2. अभिभावक (Parents)
✗ 3. स्कूल शिक्षक (School Teachers)
✗ 4. आंगनवाड़ी कार्यकर्ता (Anganwadi Workers)

Question ID : **4410091088138**
Option 1 ID : **4410094290055**
Option 2 ID : **4410094290054**
Option 3 ID : **4410094290053**
Option 4 ID : **4410094290052**

Q.7 जीन पियाजे के संज्ञानात्मक विकास के सिद्धांत के अनुसार, जटिल विचारों का निर्माण _____ चरण के दौरान होता है।

Ans
✗ 1. संवेदी-पेशीय
✗ 2. मूर्त संक्रियात्मक
✗ 3. पूर्व-संक्रियात्मक
✓ 4. औपचारिक संक्रियात्मक

Question ID : **441009984535**
Option 1 ID : **4410093890568**
Option 2 ID : **4410093890567**
Option 3 ID : **4410093890566**
Option 4 ID : **4410093890569**

Q.8 Children master using their arms before their hands and they develop control over their fingers much later, because:

Ans
✗ 1. rate of growth varies from organ to organ
✗ 2. growth is sequential
✓ 3. development proceeds from central to peripheral parts, referred as near to far sequence
✗ 4. development proceeds from upper part of the body to the lower part of the body

Question ID : **441009984496**
Option 1 ID : **4410093890411**
Option 2 ID : **4410093890410**
Option 3 ID : **4410093890412**
Option 4 ID : **4410093890413**

Q.9 What is autism?

Ans
✗ 1. Language processing disorder
✓ 2. Neurological or brain disorder
✗ 3. Ability to deal with abstract and symbolic materials is very limited
✗ 4. Decreased cognitive growth

Question ID : **441009984747**
Option 1 ID : **4410093891416**
Option 2 ID : **4410093891415**
Option 3 ID : **4410093891417**
Option 4 ID : **4410093891414**

QuickSarkari.com | WhatsApp Channel | Telegram: t.me/quick_sarkari

Q.10 From the following, identify the non-negotiable facilities which must be made available to children at an ECCE centre.

Ans

✗ 1. Low noise level

✗ 2. Transport facility

✓ 3. Structurally safe building and within easy approach

✗ 4. Located in residential area

Question ID : **441009984362**
Option 1 ID : **4410093889877**
Option 2 ID : **4410093889876**
Option 3 ID : **4410093889874**
Option 4 ID : **4410093889875**

Q.11 Children's ability to transition successfully to a pre-school depends upon _____.

Ans

✗ 1. the distance from the home

✓ 2. their own personal characteristics such as temperament and personality

✗ 3. the reputation of the institution

✗ 4. the size of the institution

Question ID : **441009984387**
Option 1 ID : **4410093889975**
Option 2 ID : **4410093889974**
Option 3 ID : **4410093889976**
Option 4 ID : **4410093889977**

Q.12 निम्नलिखित अधिगम अक्षमताओं और उनसे संबंधित समस्याओं का मिलान कीजिए।

अधिगम अक्षमता	**संबंधित समस्याएं**
I. डिसग्राफिया (Dysgraphia)	a. सूक्ष्म और स्थूल पेशीय कौशल में समस्या
I. डिस्लेक्सिया (Dyslexia)	b. संख्याओं और अंकगणित में कठिनाई
I. डिस्कैलकुलिया (Dyscalculia)	c. पढ़ने में समस्या
′. डिस्प्रैक्सिया (Dyspraxia)	d. लिखने में समस्या

Ans

✗ 1. I-b, II-a, III- d, IV-c

✗ 2. I-d, II-a, III-b, IV-c

✓ 3. I-d, II-c, III-b, IV-a

✗ 4. I-a, II-d, III-b, IV-c

Question ID : **441009984785**
Option 1 ID : **4410093891566**
Option 2 ID : **4410093891569**
Option 3 ID : **4410093891567**
Option 4 ID : **4410093891568**

QuickSarkari.com | WhatsApp Channel | Telegram: t.me/quick_sarkari

Q.13 परिवार के सदस्य _____, पूर्वस्कूली शिक्षक के लिए जानकारी का स्रोत होते हैं।

Ans
✗ 1. घर पर बच्चे के क्रोधावेशों का वर्णन करके
✓ 2. अपने बच्चे के निरंतर विकास के संबंध में अपनें अवलोकनों को सूचित करके
✗ 3. उसे सभ्य और दयालु बनने की सलाह देकर
✗ 4. उन्हें एक विशिष्ट कविता सिखाने का अनुरोध करके

Question ID : **441009984381**
Option 1 ID : **4410093889952**
Option 2 ID : **4410093889950**
Option 3 ID : **4410093889953**
Option 4 ID : **4410093889951**

Q.14 मस्तिष्क का विकास एक सतत प्रक्रिया है और यह _____ शुरू होती है।

Ans
✗ 1. जन्म के बाद से
✓ 2. जन्म के पहले से
✗ 3. बाल्यावस्था में
✗ 4. किशोरावस्था में

Question ID : **441009984562**
Option 1 ID : **4410093890676**
Option 2 ID : **4410093890675**
Option 3 ID : **4410093890674**
Option 4 ID : **4410093890677**

Q.15 कौन-सी गतिविधि सकल गत्यात्मक-विकास में सुधार का सबसे अच्छा निरूपण करती है?

Ans
✗ 1. अक्षर छापना (Printing letters)
✓ 2. सीढ़ियाँ चढ़ना (Climbing stairs)
✗ 3. जूते के फीते बाँधना (Tying shoelaces)
✗ 4. ब्लॉक टावर बनाना (Building block towers)

Question ID : **4410091096632**
Option 1 ID : **4410094323915**
Option 2 ID : **4410094323914**
Option 3 ID : **4410094323916**
Option 4 ID : **4410094323913**

Q.16 Synaptic pruning is a process that occurs in the development of the brain. It involves _____.

Ans
✗ 1. weakening of synapses
✗ 2. strengthening of synapses
✓ 3. removal of unused synapses
✗ 4. formation of synapses

Question ID : **441009984551**
Option 1 ID : **4410093890632**
Option 2 ID : **4410093890630**
Option 3 ID : **4410093890633**
Option 4 ID : **4410093890631**

Q.17 सिनैप्टिक प्रूनिंग (Synaptic pruning) वह प्रक्रिया है जो _____ में होती है।

Ans
✗ 1. पेशियों
✗ 2. वृक्क
✓ 3. मस्तिष्क
✗ 4. हृदय

Question ID : **441009984554**
Option 1 ID : **4410093890644**
Option 2 ID : **4410093890645**
Option 3 ID : **4410093890642**
Option 4 ID : **4410093890643**

Q.18 श्रवण बाधित बच्चों को पढ़ाने के लिए निम्नलिखित में से कौन-सा उपागम अनुशंसित है?

Ans
✗ 1. केवल लिखित निर्देशों का उपयोग करना
✓ 2. हाव-भाव, लिप रीडिंग और चेहरे के भावों का उपयोग करना
✗ 3. मौखिक व्याख्यानों पर ज़ोर देना
✗ 4. दृश्य सामग्री से बचना

Question ID : **4410091088132**
Option 1 ID : **4410094290028**
Option 2 ID : **4410094290031**
Option 3 ID : **4410094290029**
Option 4 ID : **4410094290030**

Q.19 How will the teacher identify a 'slow learner' in the class?

Ans
✓ 1. Observation and case study
✗ 2. Interaction with friends
✗ 3. Psychological tests
✗ 4. While doing activity in the class

Question ID : **441009984769**
Option 1 ID : **4410093891504**
Option 2 ID : **4410093891503**
Option 3 ID : **4410093891505**
Option 4 ID : **4410093891502**

Q.20 Which of the following are essential components of cognitive development?

Ans
✓ 1. Attention, Perception, Memory, Reasoning
✗ 2. Learning, Social Behaviour, Formal Education
✗ 3. Informal Education, Locomotion, Interaction
✗ 4. Reasoning, Climbing, Running

Question ID : **441009984450**
Option 1 ID : **4410093890226**
Option 2 ID : **4410093890228**
Option 3 ID : **4410093890229**
Option 4 ID : **4410093890227**

QuickSarkari.com | WhatsApp Channel | Telegram: t.me/quick_sarkari

Quick Sarkari

Thank you for studying with QuickSarkari!

Get the latest Sarkari Naukri notifications, admit cards, results, answer keys and free previous-year papers first - follow us on WhatsApp and Telegram.

Visit www.quicksarkari.com

Join our WhatsApp Channel

https://whatsapp.com/channel/0029VaxxbrREquiPoXTWM229

Join our Telegram Channel

https://t.me/quick_sarkari

Share this PDF with your friends preparing for DSSSB exams.