Quick Sarkari

DSSSB PREVIOUS YEAR PAPER WITH ANSWER KEY

DSSSB Assistant Teacher (Nursery)

13 August 2025 · Shift 3

डीएसएसएसबी सहायक अध्यापक (नर्सरी) – 13 अगस्त 2025, शिफ्ट 3 का प्रश्न पत्र, उत्तर कुंजी सहित

200	120 min	1 / −0.25	EN + HI
Questions / प्रश्न	Duration / समय	Marks per Q / अंक	Language / भाषा

Sections: General intelligence and Reasoning Ability, General Awareness, Arithmetical and Numerical Ability, English Language and Comprehension, Hindi Language and Comprehension, Assistant Teacher (Nursery)

INSIDE THIS PDF / इस PDF में

Question Paper in English + Hindi with Answer Key (correct option marked in green) + answer table — Page 2–53
प्रश्न पत्र अंग्रेज़ी + हिंदी में, उत्तर कुंजी सहित (सही विकल्प हरे रंग में) + उत्तर तालिका

Official DSSSB Response Sheet with Answer Key (correct option ticked in green) — Page 54–119
आधिकारिक DSSSB रिस्पॉन्स शीट, उत्तर कुंजी सहित (सही विकल्प हरे टिक से)

HOW TO USE THIS PAPER / इस पेपर का उपयोग कैसे करें

1. Attempt the paper first as a timed online mock test (link below).
   पहले नीचे दिए लिंक से इसे टाइमर के साथ ऑनलाइन मॉक टेस्ट के रूप में हल करें।
2. Check your score, section-wise analysis and solutions online.
   ऑनलाइन अपना स्कोर, खंड-वार विश्लेषण और हल देखें।
3. Use this PDF for revision. Correct answers are shown in green.
   दोहराने के लिए इस PDF का उपयोग करें। सही उत्तर हरे रंग में दिए गए हैं।

Attempt this paper as a FREE online mock test

इस पेपर को फ्री ऑनलाइन मॉक टेस्ट के रूप में हल करें – टाइमर, स्कोर और हल के साथ

https://quicksarkari.com/dsssb-assistant-teacher-nursery-13-august-2025-shift-3-mock-test/

All DSSSB Assistant Teacher (Nursery) papers and mock tests: **quicksarkari.com/dsssb-mock-test/#assistant-teacher-nursery**

Join WhatsApp Channel | Join Telegram Channel

DSSSB Assistant Teacher (Nursery) – Question Paper (English + Hindi)

DSSSB सहायक अध्यापक (नर्सरी) – प्रश्न पत्र (अंग्रेज़ी + हिंदी)

Exam held on 13 August 2025, Shift 3 · 200 questions · correct answers marked ✔ in green
परीक्षा तिथि 13 अगस्त 2025, शिफ्ट 3 · 200 प्रश्न · सही उत्तर हरे रंग में ✔ से चिह्नित

> The official paper for this shift was in English. The Hindi version of each question is a translation prepared by QuickSarkari; the language-section questions are shown as asked.
> इस शिफ्ट का आधिकारिक प्रश्न पत्र अंग्रेज़ी में था। प्रत्येक प्रश्न का हिंदी संस्करण QuickSarkari द्वारा तैयार किया गया अनुवाद है; भाषा खंड के प्रश्न मूल रूप में दिए गए हैं।

General intelligence and Reasoning Ability

Q.1 Y, Z, A, B, C, and D live on six different floors of the same building. The lowermost floor in the building is numbered 1, the floor above it is numbered 2 and so on till the topmost floor is numbered 6. A lives immediately above D. Only three people live between D and Y. B lives on an even-numbered floor but not on floor number 2. Z lives on an odd-numbered floor. A lives on the uppermost floor. Who lives on floor number 1?

Y, Z, A, B, C और D एक ही इमारत की छह अलग-अलग मंजिलों पर रहते हैं। इमारत की सबसे निचली मंजिल की संख्या 1 है, उसके ठीक ऊपर वाली मंजिल की संख्या 2 है और इसी प्रकार सबसे ऊपरी मंजिल की संख्या 6 है। A, D के ठीक ऊपर रहता है। D और Y के बीच केवल तीन व्यक्ति रहते हैं। B एक सम संख्या वाली मंजिल पर रहता है, लेकिन मंजिल संख्या 2 पर नहीं। Z एक विषम संख्या वाली मंजिल पर रहता है। A सबसे ऊपरी मंजिल पर रहता है। मंजिल संख्या 1 पर कौन रहता है?

(1) B
(2) A
(3) Z
(4) Y ✔

Q.2 What should come in place of the question mark (?) in the given series?
29 29 117 117 205 205 293 293 ?

दी गई श्रृंखला में प्रश्न चिह्न (?) के स्थान पर क्या आना चाहिए?
29 29 117 117 205 205 293 293 ?

(1) 349
(2) 393
(3) 381 ✔
(4) 367

Q.3 Select the set in which the numbers are related in the same way as are the numbers of the following sets.
(NOTE: Operations should be performed on the whole numbers, without breaking down the numbers into their constituent digits. E.g. 13 – Operations on 13 such as adding to/subtracting from/multiplying with 13 can be performed. Breaking down 13 into 1 and 3 and then performing mathematical operations on 1 and 3 is not allowed.)
(21, 28.4, 24.2)
(33, 40.4, 36.2)

उस समुच्चय का चयन कीजिए जिसमें संख्याएँ उसी प्रकार संबंधित हैं, जिस प्रकार निम्नलिखित समुच्चयों की संख्याएँ संबंधित हैं।
(ध्यान दें: संक्रियाएँ संख्याओं को उनके घटक अंकों में तोड़े बिना, पूर्ण संख्याओं पर की जानी चाहिए। उदाहरण के लिए 13 – 13 पर संक्रियाएँ जैसे 13 में जोड़ना/घटाना/गुणा करना आदि किया जा सकता है। 13 को 1 और 3 में तोड़ना और फिर 1 और 3 पर गणितीय संक्रियाएँ करने की अनुमति नहीं है।)
(21, 28.4, 24.2)
(33, 40.4, 36.2)

(1) (39, 46.4, 41.2)
(2) (41, 48.4, 44.2) ✔
(3) (52, 59.4, 56.2)
(4) (48, 56.4, 51.2)

Q.4 Select the set in which the numbers are related in the same way as are the numbers of the following sets.
(NOTE: Operations should be performed on the whole numbers, without breaking down the numbers into their constituent digits. E.g. 13 – Operations on 13 such as adding to/subtracting from/multiplying with 13 can be performed. Breaking down 13 into 1 and 3 and then performing mathematical operations on 1 and 3 is not allowed.)
(65, 106, 83)
(38, 79, 56)

उस समुच्चय का चयन कीजिए जिसमें संख्याएँ उसी प्रकार संबंधित हैं, जिस प्रकार निम्नलिखित समुच्चयों की संख्याएँ संबंधित हैं।
(ध्यान दें: संक्रियाएँ संख्याओं को उनके घटक अंकों में तोड़े बिना, पूर्ण संख्याओं पर की जानी चाहिए। उदाहरण के लिए 13 – 13 पर संक्रियाएँ जैसे 13 में जोड़ना/घटाना/गुणा करना आदि किया जा सकता है। 13 को 1 और 3 में तोड़ना और फिर 1 और 3 पर गणितीय संक्रियाएँ करने की अनुमति नहीं है।)
(65, 106, 83)
(38, 79, 56)

(1) (26, 67, 34)
(2) (77, 118, 85)
(3) (51, 82, 69)
(4) (42, 83, 60) ✔

Q.5 Based on the English alphabetical order, three of the following four letter-cluster pairs are alike in a certain way and thus form a group. Which letter-cluster pair DOES NOT belong to that group?
(Note: The odd one out is not based on the number of consonants/vowels or their position in the letter cluster.)
अंग्रेजी वर्णमाला क्रम के आधार पर, निम्नलिखित चार अक्षर-समूह युग्मों में से तीन किसी निश्चित प्रकार से एकसमान हैं और इस प्रकार एक समूह बनाते हैं। कौन-सा अक्षर-समूह युग्म उस समूह से संबंधित नहीं है?
(ध्यान दें: असंगत अक्षर-समूह, उस अक्षर-समूह में व्यंजनों/स्वरों की संख्या या उनके स्थान पर आधारित नहीं है।)

(1) KS-SZ
(2) SA-AH
(3) CK-KO ✔
(4) IQ-QX

Q.6 In a certain code language, 'A + B' means 'A is the sister of B', 'A – B' means 'A is the brother of B', 'A x B' means 'A is the wife of B', 'A ÷ B' means 'A is the father of B'.
If 'L + M x N – O ÷ P', then how is L related to P?
एक निश्चित कूट भाषा में, 'A + B' का अर्थ है कि 'A, B की बहन है', 'A – B' का अर्थ है कि 'A, B का भाई है', 'A x B' का अर्थ है कि 'A, B की पत्नी है', 'A ÷ B' का अर्थ है कि 'A, B का पिता है'।
यदि 'L + M x N – O ÷ P' है, तो L का P से क्या संबंध है?

(1) Mother's brother's wife's mother / माता के भाई की पत्नी की माता
(2) Father's brother's wife's sister / पिता के भाई की पत्नी की बहन ✔
(3) Father's brother's wife's mother / पिता के भाई की पत्नी की माता
(4) Mother's brother's wife's sister / माता के भाई की पत्नी की बहन

Q.7 Refer to the following letter, symbol series and answer the question that follows. Counting to be done from left to right only.
(Left) K Q & U $ P T Ω G @ E % R Ω Y # * £ B (Right)
How many such symbols are there, each of which is immediately preceded by a vowel but not immediately followed by a vowel?
निम्नलिखित अक्षर, प्रतीक शृंखला का संदर्भ लीजिए तथा नीचे दिए गए प्रश्न का उत्तर दीजिए। गिनती केवल बाएँ से दाएँ की जानी है।
(बाएँ) K Q & U $ P T Ω G @ E % R Ω Y # * £ B (दाएँ)
ऐसे कितने प्रतीक हैं, जिनमें से प्रत्येक के ठीक पहले एक स्वर है, लेकिन ठीक बाद एक स्वर नहीं है?

(1) Three / तीन
(2) None / एक भी नहीं
(3) Two / दो ✔
(4) One / एक

Q.8 XV 9 is related to QN 15 in a certain way. In the same way, WK 11 is related to PC 17. To which of the following is UW 17 related, following the same logic?
XV 9 एक निश्चित प्रकार से QN 15 से संबंधित है। उसी प्रकार, WK 11, PC 17 से संबंधित है। समान तर्क का अनुसरण करते हुए, UW 17 निम्नलिखित में से किससे संबंधित है?

(1) NO 23 ✔
(2) ON 32
(3) NO 32
(4) ON 23

Q.9 In the following triads, each group of letters is related to the subsequent one following a certain logic. Select from the given options, the one which follows the same logic.
ALMS – LMSA – MLSA BOAT – OATB – AOTB

निम्नलिखित त्रिकों में, अक्षरों का प्रत्येक समूह एक निश्चित तर्क का अनुसरण करते हुए अपने बाद वाले समूह से संबंधित है। दिए गए विकल्पों में से उस विकल्प का चयन कीजिए, जो समान तर्क का अनुसरण करता है।
ALMS – LMSA – MLSA BOAT – OATB – AOTB

(1) DAWN – AWDN – AWND
(2) DROP – RODP – ROPD
(3) EXAM – XAEM – XAME
(4) CASE – ASEC – SAEC ✔

Q.10 Refer to the following number, symbol series and answer the question that follows. All numbers are single digit numbers only. Counting to be done from left to right only. (Left) 1 & 3 6 % 4 @ 8 $ 7 % 2 Ω # * 9 £ 5 (Right)
How many such symbols are there, each of which is immediately preceded by an odd number but not immediately followed by an even number?

निम्नलिखित संख्या, प्रतीक शृंखला का संदर्भ लीजिए और नीचे दिए गए प्रश्न का उत्तर दीजिए। सभी संख्याएँ केवल एक अंक वाली संख्याएँ हैं। गिनती केवल बाएँ से दाएँ की जानी है।
(बाएँ) 1 & 3 6 % 4 @ 8 $ 7 % 2 Ω # * 9 £ 5 (दाएँ)
ऐसे कितने प्रतीक हैं, जिनमें से प्रत्येक के ठीक पहले एक विषम संख्या है, लेकिन ठीक बाद एक सम संख्या नहीं है?

(1) Three / तीन
(2) None / एक भी नहीं
(3) Two / दो ✔
(4) One / एक

Q.11 C, D, E, F, G, Y and Z are sitting around a circular table facing the centre. F sits third to the left of G. Only three people sit between C and D when counted from the right of C. E sits second to the right of C. Z is an immediate neighbour of C and E. Who sits second to the left of G?

C, D, E, F, G, Y और Z एक वृत्ताकार मेज के परितः केंद्र की ओर मुख करके बैठे हैं। F, G के बाएँ से तीसरे स्थान पर बैठा है। C के दाएँ से गिनने पर C और D के बीच केवल तीन व्यक्ति बैठे हैं। E, C के दाएँ से दूसरे स्थान पर बैठा है। Z, C और E दोनों का निकटतम पड़ोसी है। G के बाएँ से दूसरे स्थान पर कौन बैठा है?

(1) C
(2) Y
(3) D ✔
(4) F

Q.12 In a certain code language, 'DECK' is coded as '8793' and 'COED' is coded as '4398'. What is the code for 'O' in the given code language?

एक निश्चित कूट भाषा में, 'DECK' को '8793' के रूप में कूटबद्ध किया जाता है और 'COED' को '4398' के रूप में कूटबद्ध किया जाता है। दी गई कूट भाषा में 'O' के लिए कूट क्या है?

(1) 8
(2) 9
(3) 3
(4) 4 ✔

Q.13 What should come in place of the question mark (?) in the given series?
133 177 133 208 133 239 133 270 133 ?
दी गई श्रृंखला में प्रश्न चिह्न (?) के स्थान पर क्या आना चाहिए?
133 177 133 208 133 239 133 270 133 ?

(1) 301 ✔
(2) 189
(3) 294
(4) 133

Q.14 If 'D' stands for '÷', 'B' stands for '×', 'C' stands for '–' and 'A' stands for '+', what will come in place of the question mark '?' in the following equation?
12 B 36 D 9 A 52 C 36 = ?
यदि 'D' का अर्थ '÷', 'B' का अर्थ '×', 'C' का अर्थ '–' और 'A' का अर्थ '+' है, तो निम्नलिखित समीकरण में प्रश्न चिह्न '?' के स्थान पर क्या आएगा?
12 B 36 D 9 A 52 C 36 = ?

(1) 72
(2) 70
(3) 64 ✔
(4) 66

Q.15 Based on the English alphabetical order, three of the following four letter-cluster pairs are alike in a certain way and thus form a group. Which letter-cluster pair DOES NOT belong to that group?
(Note: The odd one out is not based on the number of consonants/vowels or their position in the letter-cluster.)
अंग्रेजी वर्णमाला क्रम के आधार पर, निम्नलिखित चार अक्षर-समूह युग्मों में से तीन किसी निश्चित प्रकार से एकसमान हैं और इस प्रकार एक समूह बनाते हैं। कौन-सा अक्षर-समूह युग्म उस समूह से संबंधित नहीं है?
(ध्यान दें: असंगत अक्षर-समूह, उस अक्षर-समूह में व्यंजनों/स्वरों की संख्या या उनके स्थान पर आधारित नहीं है।)

(1) MI - QG
(2) VF - ZD
(3) CR - GO ✔
(4) JY - NW

Q.16 E, F, G, S, T and Z live on six different floors of the same building. The lowermost floor in the building is numbered 1, the floor above it is numbered 2 and so on till the topmost floor is numbered 6. Only two people live between S and G. Only T lives above E. Z lives on an even- numbered floor. No one lives below S. How many people live between F and T?
E, F, G, S, T और Z एक ही इमारत की छह अलग-अलग मंजिलों पर रहते हैं। इमारत की सबसे निचली मंजिल की संख्या 1 है, उसके ठीक ऊपर वाली मंजिल की संख्या 2 है और इसी प्रकार सबसे ऊपरी मंजिल की संख्या 6 है। S और G के बीच केवल दो व्यक्ति रहते हैं। E के ऊपर केवल T रहता है। Z एक सम संख्या वाली मंजिल पर रहता है। S के नीचे कोई नहीं रहता है। F और T के बीच कितने व्यक्ति रहते हैं?

(1) Two / दो ✔
(2) One / एक
(3) Zero / शून्य
(4) Three / तीन

Q.17 In a certain code language, 'CREW' is coded as '5468' and 'WEAR' is coded as '8615'. What is the code for 'A' in the given code language?

एक निश्चित कूट भाषा में, 'CREW' को '5468' के रूप में कूटबद्ध किया जाता है और 'WEAR' को '8615' के रूप में कूटबद्ध किया जाता है। दी गई कूट भाषा में 'A' के लिए कूट क्या है?

(1) 6

(2) 1 ✔

(3) 8

(4) 5

Q.18 Read the given statement(s) and conclusions carefully. Assuming that the information given in the statement(s) is true, even if it appears to be at variance with commonly known facts, decide which of the given conclusions logically follow(s) from the statement(s).

Statements:

All picnics are monsoons.

All clouds are smoke.

Some monsoons are clouds.

Conclusions:

(I) Some clouds are picnics.

(II) All monsoons are smoke.

दिए गए कथन(नों) और निष्कर्षों को ध्यानपूर्वक पढ़िए। यह मानते हुए कि कथन(नों) में दी गई जानकारी सत्य है, भले ही वह सामान्य रूप से ज्ञात तथ्यों से भिन्न प्रतीत होती हो, निर्णय लीजिए कि दिए गए निष्कर्षों में से कौन-सा/कौन-से निष्कर्ष तार्किक रूप से कथन(नों) का अनुसरण करता है/करते हैं।

कथन:

सभी पिकनिक, मानसून हैं।

सभी बादल, धुआँ हैं।

कुछ मानसून, बादल हैं।

निष्कर्ष:

(I) कुछ बादल, पिकनिक हैं।

(II) सभी मानसून, धुआँ हैं।

(1) Neither conclusion (I) nor (II) follow. / न तो निष्कर्ष (I) और न ही (II) अनुसरण करता है। ✔

(2) Only conclusion (I) follows. / केवल निष्कर्ष (I) अनुसरण करता है।

(3) Only conclusion (II) follows. / केवल निष्कर्ष (II) अनुसरण करता है।

(4) Both conclusions (I) and (II) follow. / निष्कर्ष (I) और (II) दोनों अनुसरण करते हैं।

Q.19 Which two numbers should be interchanged to make the following equation correct? (Note: The entire number should be interchanged and not individual digits of a given number.)

$6 \times 9 \times 2 - 42 + 8 \times 4 + (56 \div 7) + 24 = 125$

निम्नलिखित समीकरण को सही बनाने के लिए किन दो संख्याओं को आपस में बदला जाना चाहिए?

(ध्यान दें: संपूर्ण संख्या को आपस में बदला जाना चाहिए, न कि दी गई संख्या के अलग-अलग अंकों को।)

$6 \times 9 \times 2 - 42 + 8 \times 4 + (56 \div 7) + 24 = 125$

(1) 42 and 24 / 42 और 24

(2) 2 and 4 / 2 और 4

(3) 42 and 56 / 42 और 56

(4) 8 and 7 / 8 और 7 ✔

Q.20 Identify the figure given in the options which when put in place of the question mark (?) will logically complete the series.

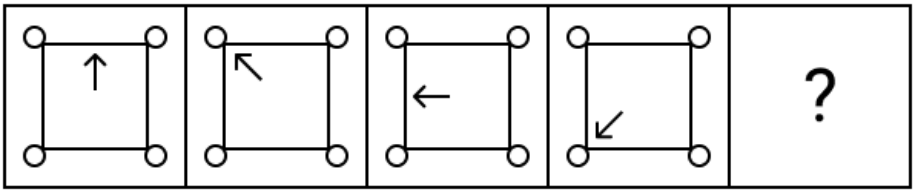

विकल्पों में दी गई उस आकृति की पहचान कीजिए, जिसे प्रश्न चिह्न (?) के स्थान पर रखने पर शृंखला तार्किक रूप से पूर्ण हो जाएगी।

(1) 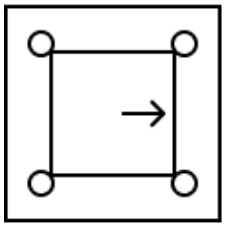

(2) 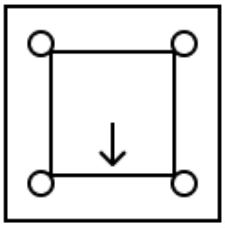

✔

(3) 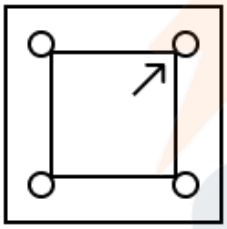

(4) 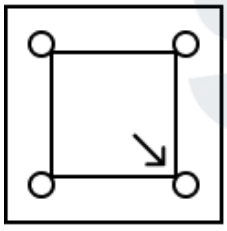

General Awareness

Q.21 To which language family does Kannada belong?

कन्नड़ किस भाषा परिवार से संबंधित है?

(1) Austroasiatic / ऑस्ट्रोएशियाटिक (Austroasiatic)

(2) Tibeto-Burman / तिब्बती-बर्मन (Tibeto-Burman)

(3) Indo-Aryan / इंडो-आर्यन (Indo-Aryan)

(4) Dravidian / द्रविड़ (Dravidian) ✔

Q.22 In which of the following states of India is the Sanchi Stupa located?

सांची का स्तूप भारत के निम्नलिखित में से किस राज्य में स्थित है?

(1) Rajasthan / राजस्थान

(2) Madhya Pradesh / मध्य प्रदेश ✔

(3) Uttar Pradesh / उत्तर प्रदेश

(4) Odisha / ओडिशा

QuickSarkari.com | WhatsApp Channel | Telegram: t.me/quick_sarkari

Q.23 Who led the Indigo Revolt in Bengal in the year 1860?

वर्ष 1860 में बंगाल में नील विद्रोह का नेतृत्व किसने किया?

(1) Mahatma Gandhi and Bishnu Biswas / महात्मा गांधी और बिष्णु विश्वास

(2) Kanhai Lal Dutt and Digambar Biswas / कन्हाई लाल दत्त और दिगंबर विश्वास

(3) Amar Krishna Ghosh and Digambar Biswas / अमर कृष्ण घोष और दिगंबर विश्वास

(4) Digambar Biswas and Bishnu Biswas / दिगंबर विश्वास और बिष्णु विश्वास ✔

Q.24 Which festival in Assam is known to mark the Assamese New Year?

असम का कौन-सा त्योहार असमिया नव वर्ष के प्रतीक के रूप में जाना जाता है?

(1) Losar / लोसर

(2) Bihu / बिहू ✔

(3) Ugadi / उगादी

(4) Pongal / पोंगल

Q.25 Which of the following Articles of the Indian Constitution provides for the establishment of a Panchayati Raj system?

भारतीय संविधान का निम्नलिखित में से कौन-सा अनुच्छेद पंचायती राज व्यवस्था की स्थापना का प्रावधान करता है?

(1) Article 80 / अनुच्छेद 80

(2) Article 40 / अनुच्छेद 40 ✔

(3) Article 45 / अनुच्छेद 45

(4) Article 73 / अनुच्छेद 73

Q.26 Which material was generally used in the Gandhara style?

गांधार शैली में सामान्यतः किस सामग्री का उपयोग किया जाता था?

(1) Marble / संगमरमर

(2) Bronze / कांस्य

(3) Bluish-grey mica schist or grey sandstone / नीला-धूसर अभ्रक या धूसर बलुआ पत्थर ✔

(4) Red sandstone / लाल बलुआ पत्थर

Q.27 How many clubs participated in the Indian Super League 2024-2025?

इंडियन सुपर लीग 2024-2025 में कितने क्लबों ने भाग लिया?

(1) 5

(2) 13 ✔

(3) 8

(4) 19

Q.28 In the Mathura school of art, local _____ stones with black spots were used for the first time to carve the images of Buddha.

कला की मथुरा शैली में बुद्ध की मूर्तियों को उकेरने के लिए पहली बार स्थानीय _____ पत्थरों का उपयोग किया गया, जिसमें काले धब्बे होते थे।

(1) red / लाल ✔

(2) green / हरा

(3) white / सफेद

(4) blue / नीला

Q.29 Which of the following regions is a good example of the radial pattern of drainage in India?
निम्नलिखित में से कौन-सा क्षेत्र भारत में अपवाह-तंत्र के रेडियल पैटर्न (radial pattern) का एक अच्छा उदाहरण है?

(1) Thar Desert / थार मरुस्थल
(2) **Amarkantak Range / अमरकंटक पर्वतमाला ✓**
(3) Coastal Plains / तटीय मैदान
(4) Northern Plains / उत्तरी मैदान

Q.30 Which of the following is NOT a primary function of carbohydrates in the human diet?
निम्नलिखित में से कौन-सा, मानव आहार में कार्बोहाइड्रेट का प्राथमिक कार्य नहीं है?

(1) Aiding in digestion / पाचन में सहायता करना
(2) **Supporting immune function / प्रतिरक्षा कार्य में सहायता करना ✓**
(3) Providing energy / ऊर्जा प्रदान करना
(4) Promoting satiety / तृप्ति को बढ़ावा देना

Q.31 How long must a person have been ordinarily resident in the territory of India to be eligible for citizenship at the commencement of the Constitution under Article 5?
अनुच्छेद 5 के तहत संविधान के प्रारंभ पर नागरिकता के लिए पात्र होने हेतु किसी व्यक्ति का भारत के राज्यक्षेत्र में कितने समय से सामान्य रूप से निवासी होना आवश्यक था?

(1) **5 years / 5 वर्ष ✓**
(2) 4 years / 4 वर्ष
(3) 7 years / 7 वर्ष
(4) 3 years / 3 वर्ष

Q.32 Researchers at _____ have developed a Completely Mechanical Passive Motion Machine for Knee Rehabilitation that has been awarded the patent No. 553407.
_____ के शोधकर्ताओं ने घुटने के पुनर्वास के लिए एक पूर्णतः यांत्रिक निष्क्रिय गति मशीन (Completely Mechanical Passive Motion Machine) विकसित की है, जिसे पेटेंट संख्या 553407 प्रदान किया गया है।

(1) DRDO
(2) IIT Madras / IIT मद्रास
(3) Delhi University / दिल्ली विश्वविद्यालय
(4) **IIT Ropar / IIT रोपड़ ✓**

Q.33 Where is the Pitti Island, famous for its bird sanctuary, located in India?
अपने पक्षी अभयारण्य के लिए प्रसिद्ध पिट्टी द्वीप भारत में कहाँ स्थित है?

(1) **Lakshadweep Islands / लक्षद्वीप द्वीपसमूह ✓**
(2) Andaman and Nicobar Islands / अंडमान और निकोबार द्वीपसमूह
(3) Puducherry / पुडुचेरी
(4) Daman and Diu / दमन और दीव

Q.34 The Parliament of India consists of:
भारत की संसद में शामिल हैं:

(1) Lok Sabha only / केवल लोकसभा
(2) **Lok Sabha, Rajya Sabha and the President / लोकसभा, राज्यसभा और राष्ट्रपति ✓**
(3) Rajya Sabha only / केवल राज्यसभा
(4) Lok Sabha and Rajya Sabha only / केवल लोकसभा और राज्यसभा

Q.35 Since 1952, the Mahabodhi Mahotsav of Sanchi, Madhya Pradesh is organised every year on the last Sunday of which month at Sochi in Raisen district, which is a world-famous tourist destination and a pilgrimage site for Buddhist followers?

1952 से, मध्य प्रदेश के साँची में महाबोधि महोत्सव का आयोजन प्रत्येक वर्ष किस माह के अंतिम रविवार को रायसेन जिले के सोची (Sochi) में किया जाता है, जो एक विश्व प्रसिद्ध पर्यटन स्थल और बौद्ध अनुयायियों का तीर्थ स्थल है?

(1) May / मई

(2) March / मार्च

(3) **November / नवंबर ✔**

(4) July / जुलाई

Q.36 The Mahatma Gandhi National Rural Employment Guarantee Act (MGNREGA) aims to provide:

महात्मा गांधी राष्ट्रीय ग्रामीण रोजगार गारंटी अधिनियम (MGNREGA) का उद्देश्य क्या प्रदान करना है?

(1) financial assistance for small businesses / लघु व्यवसायों के लिए वित्तीय सहायता

(2) skill development for youth / युवाओं के लिए कौशल विकास

(3) urban employment opportunities / शहरी रोजगार के अवसर

(4) **guaranteed employment for 100 days in rural areas / ग्रामीण क्षेत्रों में 100 दिनों का गारंटीकृत रोजगार ✔**

Q.37 Which political party led the National Democratic Alliance (NDA) in the 2024 general elections?

2024 के आम चुनावों में किस राजनीतिक दल ने राष्ट्रीय जनतांत्रिक गठबंधन (NDA) का नेतृत्व किया?

(1) Indian National Congress / भारतीय राष्ट्रीय कांग्रेस

(2) **Bharatiya Janata Party / भारतीय जनता पार्टी ✔**

(3) Communist Party of India / भारतीय कम्युनिस्ट पार्टी

(4) Bahujan Samaj Party / बहुजन समाज पार्टी

Q.38 Regional Rural banks were established in 1975 in India on the basis of the recommendation of which of the following committees?

भारत में क्षेत्रीय ग्रामीण बैंकों की स्थापना 1975 में निम्नलिखित में से किस समिति की सिफारिश के आधार पर की गई थी?

(1) Tendulkar committee / तेंदुलकर समिति

(2) Narimam committee / नरीमन समिति

(3) Kelkar committee / केलकर समिति

(4) **Narasimham committee / नरसिम्हम समिति ✔**

Q.39 NABARD was set up in India in 1982 on the basis of the recommendation of which one of the following committees?

भारत में NABARD की स्थापना 1982 में निम्नलिखित में से किस समिति की सिफारिश के आधार पर की गई थी?

(1) **Sivaraman committee / शिवरामन समिति ✔**

(2) Narimam committee / नरीमन समिति

(3) Kelkar committee / केलकर समिति

(4) Narasimham committee / नरसिम्हम समिति

Q.40 Xylem tissues in plants contain living cells that are thin-walled and their cell walls are made up of cellulose. These cells, which store food materials in the form of starch or fat, are known as _____.

पौधों के जाइलम ऊतकों में जीवित कोशिकाएँ होती हैं जो पतली भित्ति वाली होती हैं और उनकी कोशिका भित्ति सेलुलोज की बनी होती है। ये कोशिकाएँ, जो स्टार्च या वसा के रूप में खाद्य पदार्थों का भंडारण करती हैं, _____ कहलाती हैं।

(1) phloem / फ्लोएम

(2) xylem fibres / जाइलम तंतु

(3) tracheids / वाहिनिकाएँ (ट्रैकीड्स)

(4) xylem parenchyma / जाइलम मृदूतक (पैरेन्काइमा) ✔

Arithmetical and Numerical Ability

Q.41 The value of x in the proportion 8 : 48 :: 11 : x is:

समानुपात 8 : 48 :: 11 : x में x का मान है:

(1) 64

(2) 75

(3) 59

(4) 66 ✔

Q.42 The average pocket money of 18 boys in a hostel room is ₹1,250. Three more boys join the room, whose pocket money are ₹1,160, ₹1,370 and ₹1,480, respectively. Find the new average pocket money of all boys (correct to two places of decimals).

एक छात्रावास के कमरे में 18 लड़कों का औसत जेब खर्च ₹1,250 है।
तीन और लड़के उस कमरे में शामिल होते हैं, जिनका जेब खर्च क्रमशः ₹1,160, ₹1,370 और ₹1,480 है। सभी लड़कों का नया औसत जेब खर्च (दशमलव के दो स्थानों तक सही) ज्ञात कीजिए।

(1) ₹1,380.36

(2) ₹1,205.25

(3) ₹1,262.38 ✔

(4) ₹1,150.34

Q.43 To complete the same decoration work, Sonal takes three times as much time as Parul and four times as much time as Sweety. Working together, they can complete the work in 6 days. How many days will Sonal alone take to complete three times that work?

सोनल को समान सजावट कार्य पूरा करने में, पारुल से तीन गुना अधिक समय तथा स्वीटी से चार गुना अधिक समय लगता है। साथ मिलकर, वे उस कार्य को 6 दिनों में पूरा कर सकती हैं। सोनल को अकेले उस कार्य का तीन गुना कार्य पूरा करने में, कितने दिनों का समय लगेगा?

(1) 96

(2) 48

(3) 144 ✔

(4) 192

Q.44 An electric pump can fill a tank in 4 hours. Because of a leak in the tank, it took 5 hours to fill the tank. When the tank is full, how much time will the leak take to empty it (in hours)?

एक विद्युत पंप एक टंकी को 4 घंटे में भर सकता है। टंकी में रिसाव के कारण, टंकी को भरने में 5 घंटे लगे। टंकी पूरी भरी होने पर, रिसाव उसे खाली करने में कितना समय (घंटों में) लेगा?

(1) 18

(2) 21

(3) **20** ✔

(4) 15

Q.45 The speed of a car increases by 3 kms after every one hour. If the distance travelled in the first one hour was 37 kms, what was the total distance travelled in 14 hours?

एक कार की चाल प्रत्येक एक घंटे के बाद 3 km बढ़ जाती है। यदि पहले एक घंटे में तय की गई दूरी 37 km थी, तो 14 घंटों में तय की गई कुल दूरी कितनी थी?

(1) 787 km

(2) 784 km

(3) **791 km** ✔

(4) 801 km

Q.46 Arvind bought an article for ₹x. He sold it to Biru at a loss of 5%. Biru spent ₹106 on its transportation and sold it to Minu at a profit of 60%. If Minu bought it for ₹1264, then what is the value of x?

अरविंद ने एक वस्तु ₹x में खरीदी। उसने इसे 5% की हानि पर बीरू को बेच दिया। बीरू ने इसके परिवहन पर ₹106 खर्च किए और इसे 60% के लाभ पर मीनू को बेच दिया। यदि मीनू ने इसे ₹1264 में खरीदा, तो x का मान क्या है?

(1) 677

(2) **720** ✔

(3) 765

(4) 738

Q.47 If a six-digit number 650P12 is divisible by 252, then the value of (3P + 2)/(P + 3) is:

यदि छह अंकों की एक संख्या 650P12, 252 से विभाज्य है, तो (3P + 2)/(P + 3) का मान है:

(1) 3

(2) 1

(3) **2** ✔

(4) 4

Q.48 Find the duration (in years) in which ₹1200 will amount to ₹2400 at a rate of 4% per annum simple interest.

वह अवधि (वर्षों में) ज्ञात कीजिए, जिसमें ₹1200 की राशि 4% वार्षिक साधारण ब्याज की दर से ₹2400 हो जाएगी।

(1) **25** ✔

(2) 27

(3) 24

(4) 26

Q.49 In a clearance sale of electronic items, an item whose marked price was ₹12020 is now sold for ₹10217, at d% discount on the marked price of the item The value of d is:

इलेक्ट्रॉनिक वस्तुओं की एक क्लीयरेंस सेल में, एक वस्तु जिसका अंकित मूल्य ₹12020 था, अब वस्तु के अंकित मूल्य पर d% की छूट पर ₹10217 में बेची जाती है। d का मान है:

(1) 17

(2) 16

(3) 15 ✔

(4) 14

Q.50 Swaraj sold an article at a loss of 27%. If he had sold that article for ₹27 more, he would have gained 9%. Find the cost price of that article.

स्वराज ने एक वस्तु 27% की हानि पर बेची। यदि उसने वह वस्तु ₹27 अधिक में बेची होती, तो उसे 9% का लाभ होता। उस वस्तु का क्रय मूल्य ज्ञात कीजिए।

(1) ₹75 ✔

(2) ₹18

(3) ₹36

(4) ₹54

Q.51 What will be the amount after 1 year, if ₹9000 is invested at 20% compound interest per annum, compounded half-yearly?

यदि ₹9000 को 20% वार्षिक चक्रवृद्धि ब्याज पर, जो अर्धवार्षिक रूप से संयोजित होता है, निवेश किया जाए, तो 1 वर्ष बाद मिश्रधन कितना होगा?

(1) ₹10761

(2) ₹10139

(3) ₹10890 ✔

(4) ₹10741

Q.52 A boy runs 40 km in 5 hours. How long will he take to run 64 km at double the previous speed?

एक लड़का 5 घंटे में 40 km दौड़ता है। पिछली चाल से दोगुनी चाल से 64 km दौड़ने में उसे कितना समय लगेगा?

(1) 3 hours / 3 घंटे

(2) 2 hours / 2 घंटे

(3) 4 hours / 4 घंटे ✔

(4) 8 hours / 8 घंटे

Q.53 The volume of 3,375 spherical drops of diameter 2 mm each is equal to that of one spherical bubble. Find the diameter of the bubble.

2 mm व्यास वाले 3,375 गोलाकार बूंदों का आयतन, एक गोलाकार बुलबुले के बराबर है। बुलबुले का व्यास ज्ञात कीजिए।

(1) 30 cm

(2) 1.5 cm

(3) 15 cm

(4) 3 cm ✔

Q.54 J and K started a business with ₹1,50,000 and ₹1,20,000 respectively. After 3 months, L joined with ₹2,00,000. At the end of the year, the business earned a profit of ₹2,10,000. J and K decided to donate 10% of their combined profit shares to charity. The remaining profit was distributed accordingly. Find the amount donated to charity.

J और K ने क्रमशः ₹1,50,000 और ₹1,20,000 के साथ एक व्यवसाय शुरू किया। 3 महीने बाद, L ₹2,00,000 के साथ शामिल हुआ। वर्ष के अंत में, व्यवसाय ने ₹2,10,000 का लाभ अर्जित किया। J और K ने अपने संयुक्त लाभ हिस्से का 10% दान में देने का निर्णय लिया। शेष लाभ तदनुसार वितरित किया गया। दान में दी गई राशि ज्ञात कीजिए।

(1) ₹13,500 ✔

(2) ₹13,900

(3) ₹12,500

(4) ₹12,800

Q.55 1500 people visited an exhibition on Saturday, whereas 1695 people visited it on Sunday. The percentage increase in the number of people visiting the exhibition on Sunday over that to visit it on Saturday was _____%.

शनिवार को 1500 लोगों ने एक प्रदर्शनी देखी, जबकि रविवार को 1695 लोगों ने इसे देखा। शनिवार को प्रदर्शनी देखने आए लोगों की संख्या की तुलना में रविवार को प्रदर्शनी देखने आए लोगों की संख्या में प्रतिशत वृद्धि _____% थी।

(1) 12.5

(2) 11.5

(3) 14

(4) 13 ✔

Q.56 Percentage-wise distribution of students studying science in seven different institutions are presented in the given pie chart.

Study the pie chart carefully and answer the question that follows.

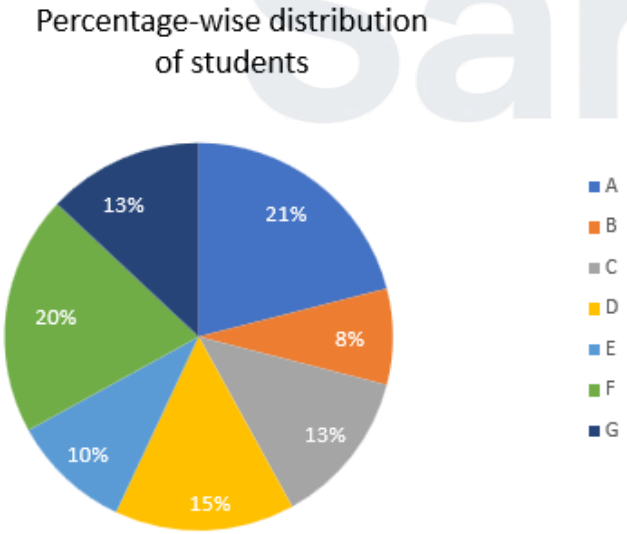

Find the ratio of the number of students studying science from Institute B to that studying science from Institute E.

सात अलग-अलग संस्थानों में विज्ञान पढ़ने वाले छात्रों का प्रतिशत-वार वितरण दिए गए पाई चार्ट में प्रस्तुत किया गया है।

पाई चार्ट का ध्यानपूर्वक अध्ययन कीजिए और नीचे दिए गए प्रश्न का उत्तर दीजिए।

संस्थान B से विज्ञान पढ़ने वाले छात्रों की संख्या और संस्थान E से विज्ञान पढ़ने वाले छात्रों की संख्या का अनुपात ज्ञात कीजिए।

(1) 5 : 3

(2) 5 : 4

(3) 4 : 5 ✔

(4) 3 : 5

Q.57 A number leaves a remainder of 0 when divided by both 3 and 9 but leaves a remainder of 2 when divided by 5. Which of the following could be that number?
एक संख्या को 3 और 9 दोनों से विभाजित करने पर शेषफल 0 प्राप्त होता है, लेकिन 5 से विभाजित करने पर शेषफल 2 प्राप्त होता है। निम्नलिखित में से कौन-सी वह संख्या हो सकती है?

(1) 54
(2) 72 ✔
(3) 45
(4) 63

Q.58 A number is first increased by 32% and then decreased by 80% to get 330. What is 42% of that number?
एक संख्या में पहले 32% की वृद्धि की जाती है और फिर 80% की कमी की जाती है, जिससे 330 प्राप्त होता है। उस संख्या का 42% क्या है?

(1) 525 ✔
(2) 645
(3) 395
(4) 412

Q.59 The volume (in m^3) of a cuboidal tank, whose dimensions are given as 4 m × 2 m × 46 m, is:
एक घनाभाकार टंकी, जिसकी विमाएँ 4 m × 2 m × 46 m दी गई हैं, का आयतन (m^3 में) है:

(1) 377
(2) 370
(3) 400
(4) 368 ✔

Q.60 The average salary of all the workers in a workshop is ₹8,000. The average salary of 7 technicians is ₹12,000, and the average salary of the rest is ₹7,000. The total number of workers in the workshop is:
एक कार्यशाला में सभी कर्मचारियों का औसत वेतन ₹8,000 है। 7 तकनीशियनों का औसत वेतन ₹12,000 है, और शेष कर्मचारियों का औसत वेतन ₹7,000 है। कार्यशाला में कर्मचारियों की कुल संख्या है:

(1) 38
(2) 35 ✔
(3) 30
(4) 32

English Language and Comprehension

Q.61 Select the INCORRECTLY spelt word.

(1) Liquer ✔
(2) Liquefy
(3) Bologna
(4) Imbroglio

Q.62 Select the most appropriate adjective to fill in the blank.
The _____ fabric felt soft and luxurious to the touch.

(1) coarse
(2) abrasive
(3) silky ✔
(4) rough

Q.63 Select the most appropriate meaning of the given proverb.
Ignorance is bliss.

(1) Innocence leads to problems in life.

(2) Happiness appears when ignorance is eliminated.

(3) Knowing everything is the key to happiness.

(4) Sometimes, not knowing certain things can make you happier. ✔

Q.64 Sentences of a paragraph are given below in jumbled order. Arrange the sentences in the correct order to form a meaningful and coherent paragraph.
A) Women's empowerment is essential for achieving gender equality. When women become empowered, they can better challenge gender-based discrimination and inequality.
B) Women's empowerment refers to increasing women's social, economic and political power through various means. It is about giving women the freedom and opportunity to make decisions that impact their lives, communities and the world.
C) Additionally, women's empowerment is often hindered by violence and insecurity. Women who experience violence and insecurity are less likely to be able to pursue their goals and participate in their communities, which can prevent them from achieving empowerment.
D) Despite its importance, women's empowerment faces many challenges. One of the biggest challenges is cultural attitudes and beliefs perpetuating gender-based discrimination and inequality. These attitudes and beliefs are often deeply rooted in societies and can be challenging to change.

(1) CDAB

(2) BADC ✔

(3) ACBD

(4) BCDA

Q.65 Select the most appropriate option to fill in the blanks. If no article is required, select the option with 'No article required'.
In a tense courtroom drama, _____ defence attorney presented a compelling argument to the jury, while _____ prosecutor scrutinised every detail of the evidence.

(1) the; No article required

(2) the; the ✔

(3) a; the

(4) the; a

Q.66 Select the most appropriate ANTONYM of the given word.
Recognise

(1) Deny ✔

(2) Discern

(3) Twig

(4) Assimilate

QuickSarkari.com | WhatsApp Channel | Telegram: t.me/quick_sarkari

Q.67 Sentences of a paragraph are given below in jumbled order. Arrange the sentences in the correct order to form a meaningful and coherent paragraph.
A. Even though these students were invited to design skateboards for Birds on the Edge, it gave the students a chance to explore the parallels between their own lives and those of endangered species.
B. Students who no longer attend mainstream schools have taken part in a 'transformative' art project.
C. For a special exhibition held by North York Moors National Park, Pupil Referral Service in Scarborough have started working in collaboration for this 'transformative' art project for such students.
D. This was the ideal aim of the wildlife exhibition at the National Park's gallery – to raise awareness of the need to protect birds' habitats and it came naturally to the students who participated in it.

(1) BADC
(2) BDAC
(3) BCAD ✔
(4) BCDA

Q.68 Sentences of a paragraph are given below in jumbled order. Arrange the sentences in the correct order to form a meaningful and coherent paragraph.
A. Unlike novels, poems leave much unsaid, inviting multiple interpretations.
B. Poetry is a unique form of literature that compresses meaning into few words.
C. This economy of language is what gives poetry its emotional power.
D. The reader must engage actively to grasp the full depth of a poem.

(1) CDBA
(2) DABC
(3) ABCD
(4) BCAD ✔

Q.69 Select the option that can be used as a one-word substitute for the given group of words. One who is violently against established beliefs and traditions

(1) Intrepid
(2) Incorrigible
(3) Iconoclast ✔
(4) Introvert

Q.70 Select the most appropriate ANTONYM of the given word.
Affluent

(1) Rare
(2) Needy ✔
(3) Dull
(4) Greedy

Q.71 Select the most appropriate option to fill in the blanks. If no article is required, select the option with 'No article required'.
At the conference, an expert delivered a lecture on the impact of technology in _____ modern era, while _____ audience eagerly took notes.

(1) the; the ✔
(2) No article required; the
(3) the; No article required
(4) No article required; No article required

Q.72 Select the most appropriate idiom that can substitute the underlined segment in the given sentence.
I heard that rumour about the company policy, but I will not completely believe it until I hear an official announcement.

(1) take a rain check
(2) take the bull by the horns
(3) **take it with a pinch of salt ✔**
(4) take it with a rock of sorts

Q.73 Select the most appropriate option that can substitute the highlighted word in the given sentence.
During I was waiting for the bus, I listened to some music.

(1) **While ✔**
(2) Beside
(3) Between
(4) Where

Q.74 Select the most appropriate option to fill in the blank.
An airplane can fly _____ than a helicopter in the sky.

(1) much high
(2) highest
(3) **higher ✔**
(4) high

Q.75 Select the most appropriate preposition to fill in the blank.
I have no interest _____ learning an obsolete language.

(1) on
(2) at
(3) **in ✔**
(4) for

QuickSarkari.com | WhatsApp Channel | Telegram: t.me/quick_sarkari

Q.76

Read the passage carefully and answer the questions that follow.
In today's digital age, attention has become one of the most valuable yet limited resources. With smartphones, social media, emails, and advertisements constantly competing for our focus, the human brain is struggling to adapt. Studies reveal that the average attention span has significantly decreased in the last two decades. This shift is not just about distraction—it affects productivity, creativity, and even mental well-being. Experts believe that constant switching between digital tasks reduces our ability to concentrate deeply, making it harder to absorb and process information.
While technology offers undeniable benefits—such as real-time communication, instant access to information, and global connectivity—it also encourages fragmented thinking. The problem lies not in the technology itself, but in how we use it. Researchers suggest strategies like mindfulness practices, digital detoxes, and scheduled focus time to rebuild attention spans and regain cognitive clarity. In a world overflowing with information, the real skill is not just accessing knowledge, but filtering and prioritizing it effectively. Mastering attention, in this sense, becomes a form of modern literacy and a necessity for personal and professional growth.

Select the most appropriate title for the passage.

(1) Social Media and Society
(2) The Rise of Artificial Intelligence
(3) Technology and Human Relationships
(4) The Attention Crisis in the Digital Era ✔

Q.77

Read the passage carefully and answer the questions that follow.
In today's digital age, attention has become one of the most valuable yet limited resources. With smartphones, social media, emails, and advertisements constantly competing for our focus, the human brain is struggling to adapt. Studies reveal that the average attention span has significantly decreased in the last two decades. This shift is not just about distraction—it affects productivity, creativity, and even mental well-being. Experts believe that constant switching between digital tasks reduces our ability to concentrate deeply, making it harder to absorb and process information.
While technology offers undeniable benefits—such as real-time communication, instant access to information, and global connectivity—it also encourages fragmented thinking. The problem lies not in the technology itself, but in how we use it. Researchers suggest strategies like mindfulness practices, digital detoxes, and scheduled focus time to rebuild attention spans and regain cognitive clarity. In a world overflowing with information, the real skill is not just accessing knowledge, but filtering and prioritizing it effectively. Mastering attention, in this sense, becomes a form of modern literacy and a necessity for personal and professional growth.

What is the central theme of the passage?

(1) How to improve memory
(2) Negative impacts of social media
(3) The development of artificial intelligence
(4) The value and decline of attention in the digital world ✔

Q.78

Read the passage carefully and answer the questions that follow.
In today's digital age, attention has become one of the most valuable yet limited resources. With smartphones, social media, emails, and advertisements constantly competing for our focus, the human brain is struggling to adapt. Studies reveal that the average attention span has significantly decreased in the last two decades. This shift is not just about distraction—it affects productivity, creativity, and even mental well-being. Experts believe that constant switching between digital tasks reduces our ability to concentrate deeply, making it harder to absorb and process information.
While technology offers undeniable benefits—such as real-time communication, instant access to information, and global connectivity—it also encourages fragmented thinking. The problem lies not in the technology itself, but in how we use it. Researchers suggest strategies like mindfulness practices, digital detoxes, and scheduled focus time to rebuild attention spans and regain cognitive clarity. In a world overflowing with information, the real skill is not just accessing knowledge, but filtering and prioritizing it effectively. Mastering attention, in this sense, becomes a form of modern literacy and a necessity for personal and professional growth.

What can be inferred from the passage?

(1) Managing attention is key to thriving in a digital world ✔
(2) Social media is the main source of happiness
(3) Reading books has become obsolete
(4) The internet improves focus and mental clarity

Q.79

Read the passage carefully and answer the questions that follow.
In today's digital age, attention has become one of the most valuable yet limited resources. With smartphones, social media, emails, and advertisements constantly competing for our focus, the human brain is struggling to adapt. Studies reveal that the average attention span has significantly decreased in the last two decades. This shift is not just about distraction—it affects productivity, creativity, and even mental well-being. Experts believe that constant switching between digital tasks reduces our ability to concentrate deeply, making it harder to absorb and process information.
While technology offers undeniable benefits—such as real-time communication, instant access to information, and global connectivity—it also encourages fragmented thinking. The problem lies not in the technology itself, but in how we use it. Researchers suggest strategies like mindfulness practices, digital detoxes, and scheduled focus time to rebuild attention spans and regain cognitive clarity. In a world overflowing with information, the real skill is not just accessing knowledge, but filtering and prioritizing it effectively. Mastering attention, in this sense, becomes a form of modern literacy and a necessity for personal and professional growth.

What is the structure of the passage?

(1) Example → Argument → Counterpoint
(2) Definition → Comparison → Conclusion
(3) Cause → Effect → Recommendation ✔
(4) Narrative → Conflict → Resolution

Q.80

Read the passage carefully and answer the questions that follow.
In today's digital age, attention has become one of the most valuable yet limited resources. With smartphones, social media, emails, and advertisements constantly competing for our focus, the human brain is struggling to adapt. Studies reveal that the average attention span has significantly decreased in the last two decades. This shift is not just about distraction—it affects productivity, creativity, and even mental well-being. Experts believe that constant switching between digital tasks reduces our ability to concentrate deeply, making it harder to absorb and process information.
While technology offers undeniable benefits—such as real-time communication, instant access to information, and global connectivity—it also encourages fragmented thinking. The problem lies not in the technology itself, but in how we use it. Researchers suggest strategies like mindfulness practices, digital detoxes, and scheduled focus time to rebuild attention spans and regain cognitive clarity. In a world overflowing with information, the real skill is not just accessing knowledge, but filtering and prioritizing it effectively. Mastering attention, in this sense, becomes a form of modern literacy and a necessity for personal and professional growth.

What is the tone of the passage?

(1) Critical and Aggressive
(2) Humourous
(3) Sarcastic
(4) **Concerned and Informative ✔**

Hindi Language and Comprehension

Q.81 इनमें से अनेकार्थी शब्द कौन है?

(1) विद्यालय
(2) परिश्रम
(3) खिड़की
(4) **हरि ✔**

Q.82 सही वाक्य-क्रम वाले वाक्य का चयन कीजिए-

(1) भरतनाट्यम/ अत्यन्त/ छात्राओं ने/ सुन्दर/ प्रस्तुत किया
(2) छात्राओं ने/ भरतनाट्यम/ सुन्दर/ अत्यन्त/ प्रस्तुत किया
(3) **छात्राओं ने/ अत्यन्त/ सुन्दर/ भरतनाट्यम/ प्रस्तुत किया ✔**
(4) अत्यन्त/ सुन्दर/ छात्राओं ने/ प्रस्तुत/ भरतनाट्यम/ किया

Q.83 तद्भव शब्द का चयन करें-

(1) यदा
(2) **चना ✔**
(3) चूर्ण
(4) जटा

Q.84 'चारपाई से लगना' मुहावरे का अर्थ क्या है?

(1) मजा किरकिरा होना

(2) निष्कलंक होना

(3) **बीमारी से उठ ना पाना ✔**

(4) असंभव को संभव करना

Q.85 'अनुसंधित्सा' शब्द के लिए उपयुक्त वाक्यांश निम्नलिखित में से चुनिए -

(1) चोट खाया हुआ

(2) **अनुसंधान की इच्छा ✔**

(3) राजा का बगीचा

(4) आम का बगीचा

Q.86 उपयुक्त रीतिवाचक क्रिया-विशेषण से वाक्य को पूर्ण कीजिए।
अंकिता ..... पढ़ती है।

(1) **ज़ोर-से ✔**

(2) मीठा

(3) आज

(4) उधर

Q.87 नीचे दिए गए वाक्य के किस भाग में त्रुटि है ?
'यहाँ कर्त्रिवाच्य कृदंत क्रिया है।'

(1) **कर्त्रिवाच्य ✔**

(2) कृदंत

(3) क्रिया है

(4) यहाँ

Q.88 सही 'क्रिया' का चयन कर दिए गए वाक्य को पूर्ण कीजिए- ' नाव जल पर ..... है।'

(1) **तैरती ✔**

(2) डूबती

(3) नाचती

(4) खेलती

Q.89 दिए गए वाक्यों में से सही वाक्य क्रम का चयन कीजिए।

(1) सूफियों ने प्रेम की प्रतिष्ठा पारलौकिक की।

(2) **सूफियों ने पारलौकिक प्रेम की प्रतिष्ठा की। ✔**

(3) प्रेम की प्रतिष्ठा पारलौकिक की सूफियों ने।

(4) प्रेम सूफियों ने पारलौकिक की प्रतिष्ठा की।

Q.90 'उपरि' के उचित विलोम का चयन करें -

(1) अस्त

(2) अनुद्यत

(3) तल

(4) **नीचे ✔**

QuickSarkari.com | WhatsApp Channel | Telegram: t.me/quick_sarkari

Q.91 'असभ्य' के उचित पर्यायवाची शब्द का चयन करें -

(1) अवशिष्ट

(2) **अभद्र ✔**

(3) अवज्ञा

(4) आक्षेप

Q.92 'लोगों में परम्परा से चली आ रही कथा' वाक्यांश के लिए सही अर्थ वाला विकल्प है-

(1) किंवदंती

(2) कलाकृति

(3) **दंतकथा ✔**

(4) सर्वव्यापक

Q.93 सही 'कारक' चिह्न का चयन कर दिए गए वाक्य को पूर्ण कीजिए- 'रिजवान .....ही मिठाई खायी थी।'

(1) **ने ✔**

(2) पर

(3) से

(4) को

Q.94 'म्याऊँ की ठौर को कौन पकड़े' लोकोक्ति का अर्थ क्या है?

(1) एक से बढ़कर दूसरा चालाक।

(2) सांसारिक अनुभव बहुत है।

(3) अपने को अमीर समझते हैं।

(4) **कठिन काम में कोई हाथ नहीं बँटाता। ✔**

Q.95 निम्नलिखित विकल्पों में वर्तनी संबंधी त्रुटियाँ पहचानकर वाक्य के शुद्ध रूप का चयन करें।

(1) **विश्व उद्योगीकरण की ओर अग्रसर हो रहा है। ✔**

(2) विश्व औद्योगिकीकरण की ओर अग्रसर हो रहा है।

(3) विश्व उद्योगिकीकरण की ओर अग्रसर हो रहा है।

(4) विश्व औद्योगिकिकरण की ओर अग्रसर हो रहा है।

QuickSarkari.com | WhatsApp Channel | Telegram: t.me/quick_sarkari

Q.96

नीचे दिए गद्यांश को पढ़कर पूछे गए प्रश्नों के उत्तर दें- अट्ठारहवीं शताब्दी में पहली बार यूरोप के लोगों ने यह सोचना शुरू किया कि पर्वत बहुत सुंदर होते हैं। इससे पहले मैदान के निवासियों, विशेषकर शहरी लोगों में भय उत्पन्न हुआ था। उनके लिए पर्वत जंगली व खतरनाक स्थान थे जिनमें व्यक्ति खो जाता था, भयंकर जानवरों द्वारा मार दिया जाता था। नगरवासियों ने अपने शहर में मनुष्य की प्रकृति पर विजय देखी तथा जो जंगली क्रूर , अव्यवस्थित और भद्दा था उसपर सभ्यता,व्यवस्था,शांति और सौन्दर्य का आधिपत्य देखा।
हालांकि, बहुत से लोग जो शहरी सभ्यता में सुविधापूर्वक रह रहे थे, इससे ऊबने लगे। मनुष्य में बहुत सी मूल प्रवृत्तियाँ होती हैं, उनमें से कुछ परस्पर संघर्षरत रहती हैं । इनमे से एक मूल प्रवृत्ति है अज्ञात की खोज करना। यह प्रवृत्ति उस जीवन में संतुष्ट नहीं होती है जिसमें सभी कुछ व्यवस्थित,शांतिपूर्ण व सहजग्राह्य है। यह प्रवृत्ति रहस्य को देखती है, यह उन वस्तुओं को देखती है जिनकी व्याख्या नहीं की जा सकती है, यह उन दृश्यों व ध्वनियों को देखती है जो व्यक्ति में भय का रोमांच या एहसास उत्पन्न करते हैं। इसलिए अठारहवीं शताब्दी में लोग मानव निर्मित नगरों से अछूते देश या स्थान की ओर अग्रसर होने लगे। इन अछूते स्थानों में विशेषकर वे स्थान थे जो खतरनाक ऊबड़-खाबड़ व अव्यवस्थित थे। जंगली चट्टानों व ऊंचे पर्वतों ने कविताओं व उपन्यासों में स्थान लेना शुरू कर दिया और उत्तर पश्चिमी इंग्लैंड में लेक शहर अपने पर्वतों व झीलों के साथ अवकाश व्यतीत करने का लोकप्रिय स्थान हो गया।

गद्यांश में आए 'आधिपत्य' शब्द के अर्थ का चयन करें।

(1) प्रभुत्व ✔
(2) जिम्मेदार
(3) अधिकाधिक
(4) अधिक

Q.97

नीचे दिए गद्यांश को पढ़कर पूछे गए प्रश्नों के उत्तर दें- अट्ठारहवीं शताब्दी में पहली बार यूरोप के लोगों ने यह सोचना शुरू किया कि पर्वत बहुत सुंदर होते हैं। इससे पहले मैदान के निवासियों, विशेषकर शहरी लोगों में भय उत्पन्न हुआ था। उनके लिए पर्वत जंगली व खतरनाक स्थान थे जिनमें व्यक्ति खो जाता था, भयंकर जानवरों द्वारा मार दिया जाता था। नगरवासियों ने अपने शहर में मनुष्य की प्रकृति पर विजय देखी तथा जो जंगली क्रूर , अव्यवस्थित और भद्दा था उसपर सभ्यता,व्यवस्था,शांति और सौन्दर्य का आधिपत्य देखा।
हालांकि, बहुत से लोग जो शहरी सभ्यता में सुविधापूर्वक रह रहे थे, इससे ऊबने लगे। मनुष्य में बहुत सी मूल प्रवृत्तियाँ होती हैं, उनमें से कुछ परस्पर संघर्षरत रहती हैं । इनमे से एक मूल प्रवृत्ति है अज्ञात की खोज करना। यह प्रवृत्ति उस जीवन में संतुष्ट नहीं होती है जिसमें सभी कुछ व्यवस्थित,शांतिपूर्ण व सहजग्राह्य है। यह प्रवृत्ति रहस्य को देखती है, यह उन वस्तुओं को देखती है जिनकी व्याख्या नहीं की जा सकती है, यह उन दृश्यों व ध्वनियों को देखती है जो व्यक्ति में भय का रोमांच या एहसास उत्पन्न करते हैं। इसलिए अठारहवीं शताब्दी में लोग मानव निर्मित नगरों से अछूते देश या स्थान की ओर अग्रसर होने लगे। इन अछूते स्थानों में विशेषकर वे स्थान थे जो खतरनाक ऊबड़-खाबड़ व अव्यवस्थित थे। जंगली चट्टानों व ऊंचे पर्वतों ने कविताओं व उपन्यासों में स्थान लेना शुरू कर दिया और उत्तर पश्चिमी इंग्लैंड में लेक शहर अपने पर्वतों व झीलों के साथ अवकाश व्यतीत करने का लोकप्रिय स्थान हो गया।

गद्यांश में आए 'प्रवृत्ति' शब्द के पर्यायवाची का चयन करें।

(1) इच्छा
(2) व्यवहार
(3) रुझान ✔
(4) आकर्षण

Q.98

नीचे दिए गद्यांश को पढ़कर पूछे गए प्रश्नों के उत्तर दें- अट्ठारहवीं शताब्दी में पहली बार यूरोप के लोगों ने यह सोचना शुरू किया कि पर्वत बहुत सुंदर होते हैं। इससे पहले मैदान के निवासियों, विशेषकर शहरी लोगों में भय उत्पन्न हुआ था। उनके लिए पर्वत जंगली व खतरनाक स्थान थे जिनमें व्यक्ति खो जाता था, भयंकर जानवरों द्वारा मार दिया जाता था। नगरवासियों ने अपने शहर में मनुष्य की प्रकृति पर विजय देखी तथा जो जंगली क्रूर , अव्यवस्थित और भद्दा था उसपर सभ्यता,व्यवस्था,शांति और सौन्दर्य का आधिपत्य देखा।
हालांकि, बहुत से लोग जो शहरी सभ्यता में सुविधापूर्वक रह रहे थे, इससे ऊबने लगे। मनुष्य में बहुत सी मूल प्रवृत्तियाँ होती हैं, उनमें से कुछ परस्पर संघर्षरत रहती हैं । इनमे से एक मूल प्रवृत्ति है अज्ञात की खोज करना। यह प्रवृत्ति उस जीवन में संतुष्ट नहीं होती है जिसमें सभी कुछ व्यवस्थित,शांतिपूर्ण व सहजग्राह्य है। यह प्रवृत्ति रहस्य को देखती है, यह उन वस्तुओं को देखती है जिनकी व्याख्या नहीं की जा सकती है, यह उन दृश्यों व ध्वनियों को देखती है जो व्यक्ति में भय का रोमांच या एहसास उत्पन्न करते हैं। इसलिए अठारहवीं शताब्दी में लोग मानव निर्मित नगरों से अछूते देश या स्थान की ओर अग्रसर होने लगे। इन अछूते स्थानों में विशेषकर वे स्थान थे जो खतरनाक ऊबड़-खाबड़ व अव्यवस्थित थे। जंगली चट्टानों व ऊंचे पर्वतों ने कविताओं व उपन्यासों में स्थान लेना शुरू कर दिया और उत्तर पश्चिमी इंग्लैंड में लेक शहर अपने पर्वतों व झीलों के साथ अवकाश व्यतीत करने का लोकप्रिय स्थान हो गया।

गद्यांश में आए 'क्रूर' शब्द का विलोम शब्द क्या होगा?

(1) निष्ठुर
(2) **दयालु ✔**
(3) संवेदन
(4) अहिंसक

Q.99

नीचे दिए गद्यांश को पढ़कर पूछे गए प्रश्नों के उत्तर दें- अट्ठारहवीं शताब्दी में पहली बार यूरोप के लोगों ने यह सोचना शुरू किया कि पर्वत बहुत सुंदर होते हैं। इससे पहले मैदान के निवासियों, विशेषकर शहरी लोगों में भय उत्पन्न हुआ था। उनके लिए पर्वत जंगली व खतरनाक स्थान थे जिनमें व्यक्ति खो जाता था, भयंकर जानवरों द्वारा मार दिया जाता था। नगरवासियों ने अपने शहर में मनुष्य की प्रकृति पर विजय देखी तथा जो जंगली क्रूर , अव्यवस्थित और भद्दा था उसपर सभ्यता,व्यवस्था,शांति और सौन्दर्य का आधिपत्य देखा।
हालांकि, बहुत से लोग जो शहरी सभ्यता में सुविधापूर्वक रह रहे थे, इससे ऊबने लगे। मनुष्य में बहुत सी मूल प्रवृत्तियाँ होती हैं, उनमें से कुछ परस्पर संघर्षरत रहती हैं । इनमे से एक मूल प्रवृत्ति है अज्ञात की खोज करना। यह प्रवृत्ति उस जीवन में संतुष्ट नहीं होती है जिसमें सभी कुछ व्यवस्थित,शांतिपूर्ण व सहजग्राह्य है। यह प्रवृत्ति रहस्य को देखती है, यह उन वस्तुओं को देखती है जिनकी व्याख्या नहीं की जा सकती है, यह उन दृश्यों व ध्वनियों को देखती है जो व्यक्ति में भय का रोमांच या एहसास उत्पन्न करते हैं। इसलिए अठारहवीं शताब्दी में लोग मानव निर्मित नगरों से अछूते देश या स्थान की ओर अग्रसर होने लगे। इन अछूते स्थानों में विशेषकर वे स्थान थे जो खतरनाक ऊबड़-खाबड़ व अव्यवस्थित थे। जंगली चट्टानों व ऊंचे पर्वतों ने कविताओं व उपन्यासों में स्थान लेना शुरू कर दिया और उत्तर पश्चिमी इंग्लैंड में लेक शहर अपने पर्वतों व झीलों के साथ अवकाश व्यतीत करने का लोकप्रिय स्थान हो गया।

गद्यांश में 'प्रसिद्ध' के लिए किस अन्य शब्द का प्रयोग हुआ है?

(1) अग्रसर
(2) **लोकप्रिय ✔**
(3) सहजग्राह्य
(4) सौन्दर्य

Q.100

नीचे दिए गद्यांश को पढ़कर पूछे गए प्रश्नों के उत्तर दें- अट्ठारहवीं शताब्दी में पहली बार यूरोप के लोगों ने यह सोचना शुरू किया कि पर्वत बहुत सुंदर होते हैं। इससे पहले मैदान के निवासियों, विशेषकर शहरी लोगों में भय उत्पन्न हुआ था। उनके लिए पर्वत जंगली व खतरनाक स्थान थे जिनमें व्यक्ति खो जाता था, भयंकर जानवरों द्वारा मार दिया जाता था। नगरवासियों ने अपने शहर में मनुष्य की प्रकृति पर विजय देखी तथा जो जंगली क्रूर , अव्यवस्थित और भद्दा था उसपर सभ्यता,व्यवस्था,शांति और सौन्दर्य का आधिपत्य देखा।
हालांकि, बहुत से लोग जो शहरी सभ्यता में सुविधापूर्वक रह रहे थे, इससे ऊबने लगे। मनुष्य में बहुत सी मूल प्रवृत्तियाँ होती हैं, उनमें से कुछ परस्पर संघर्षरत रहती हैं । इनमे से एक मूल प्रवृत्ति है अज्ञात की खोज करना। यह प्रवृत्ति उस जीवन में संतुष्ट नहीं होती है जिसमें सभी कुछ व्यवस्थित,शांतिपूर्ण व सहजग्राह्य है। यह प्रवृत्ति रहस्य को देखती है, यह उन वस्तुओं को देखती है जिनकी व्याख्या नहीं की जा सकती है, यह उन दृश्यों व ध्वनियों को देखती है जो व्यक्ति में भय का रोमांच या एहसास उत्पन्न करते हैं। इसलिए अठारहवीं शताब्दी में लोग मानव निर्मित नगरों से अछूते देश या स्थान की ओर अग्रसर होने लगे। इन अछूते स्थानों में विशेषकर वे स्थान थे जो खतरनाक ऊबड़-खाबड़ व अव्यवस्थित थे। जंगली चट्टानों व ऊंचे पर्वतों ने कविताओं व उपन्यासों में स्थान लेना शुरू कर दिया और उत्तर पश्चिमी इंग्लैंड में लेक शहर अपने पर्वतों व झीलों के साथ अवकाश व्यतीत करने का लोकप्रिय स्थान हो गया।

दिए हुए गद्यांश के लिए उचित शीर्षक चुनिए।

(1) मनुष्य और प्रकृति
(2) सभ्यता और संस्कृति
(3) यूरोप और जंगल
(4) **यूरोप और पर्वत ✔**

Assistant Teacher (Nursery)

Q.101 Why is a socially disadvantaged child called a deprived child?
सामाजिक रूप से वंचित बच्चे को अभावग्रस्त बच्चा क्यों कहा जाता है?

(1) **Because they lack love, proper guidance and general social security / क्योंकि उनमें प्रेम, उचित मार्गदर्शन और सामान्य सामाजिक सुरक्षा का अभाव होता है ✔**
(2) Because they do not behave in a socially acceptable form / क्योंकि वे सामाजिक रूप से स्वीकार्य ढंग से व्यवहार नहीं करते हैं
(3) Because they frequently commit crime / क्योंकि वे बार-बार अपराध करते हैं
(4) Because they indulge in anti-social activities / क्योंकि वे असामाजिक गतिविधियों में लिप्त रहते हैं

Q.102 Arrange the following activities in the correct chronological order to develop counting skills in young children.
a. Counting fingers and toes
b. Counting blocks
c. Counting groups of objects
d. Counting numbers in books
छोटे बच्चों में गिनती कौशल विकसित करने के लिए निम्नलिखित गतिविधियों को सही कालानुक्रमिक क्रम में व्यवस्थित कीजिए।
a. हाथ और पैर की उंगलियों को गिनना
b. ब्लॉकों को गिनना
c. वस्तुओं के समूहों को गिनना
d. पुस्तकों में संख्याओं को गिनना

(1) **a, b, c, d ✔**
(2) c, d, b, a
(3) b, c, d, a
(4) a, d, b, c

Q.103 Identify the age during which children learn at an elementary school.

उस आयु की पहचान कीजिए, जिसके दौरान बच्चे प्रारंभिक विद्यालय (एलिमेंट्री स्कूल) में सीखते हैं।

(1) Ages 14 to 16 / 14 से 16 वर्ष की आयु

(2) Ages 2 to 3 / 2 से 3 वर्ष की आयु

(3) Ages 5 to 12 / 5 से 12 वर्ष की आयु ✔

(4) Ages 3 to 6 / 3 से 6 वर्ष की आयु

Q.104 Which activity best promotes parent-teacher collaboration in a preschool setting?

पूर्व-प्राथमिक विद्यालय (प्रीस्कूल) परिवेश में कौन-सी गतिविधि माता-पिता-शिक्षक सहयोग को सर्वोत्तम रूप से बढ़ावा देती है?

(1) Avoiding parent participation in classroom events / कक्षा के कार्यक्रमों में माता-पिता की भागीदारी से बचना

(2) Organising regular parent-teacher meetings and workshops / नियमित रूप से अभिभावक-शिक्षक बैठकों और कार्यशालाओं का आयोजन करना ✔

(3) Sending only written progress reports / केवल लिखित प्रगति रिपोर्ट भेजना

(4) Asking parents not to interfere in school matters / माता-पिता से विद्यालय के मामलों में हस्तक्षेप न करने के लिए कहना

Q.105 Incremental vocabulary development is characterised by _____.

क्रमिक शब्दावली विकास की विशेषता _____ है।

(1) learning new words only through formal education / केवल औपचारिक शिक्षा के माध्यम से नए शब्द सीखना

(2) rapid acquisition of a large number of words in a short time / कम समय में बड़ी संख्या में शब्दों का तीव्र अर्जन

(3) focusing on the pronunciation of words rather than their meanings / शब्दों के अर्थों के बजाय उनके उच्चारण पर ध्यान केंद्रित करना

(4) gradual and continuous learning of words through diverse experiences / विविध अनुभवों के माध्यम से शब्दों का क्रमिक और निरंतर अधिगम ✔

Q.106 Cognitive growth is supported by sensory play, which enhances thought process, understanding and reasoning. _____ new materials also makes understanding of new concepts easier.

संज्ञानात्मक विकास को संवेदी खेल द्वारा समर्थन मिलता है, जो विचार प्रक्रिया, समझ और तर्क को बढ़ाता है। नई सामग्रियों का _____ भी नई अवधारणाओं की समझ को आसान बनाता है।

(1) Teacher talking about / शिक्षक द्वारा उनके बारे में बात करना

(2) Looking at / देखना

(3) Manipulating / हस्तप्रयोग (मैनिपुलेट) करना ✔

(4) Teacher showing / शिक्षक द्वारा दिखाना

Q.107 Which of the following statements are correct?
1. Growth refers to quantitative and qualitative changes.
2. Rate of growth is continuous throughout life.
3. The sequence, pattern and direction of growth are common in all children.
4. The rate of growth varies from child to child.

निम्नलिखित में से कौन-से कथन सही हैं?
1. वृद्धि का तात्पर्य मात्रात्मक और गुणात्मक परिवर्तनों से है।
2. वृद्धि की दर पूरे जीवन भर निरंतर रहती है।
3. वृद्धि का अनुक्रम, प्रतिरूप और दिशा सभी बच्चों में समान होते हैं।
4. वृद्धि की दर प्रत्येक बच्चे में भिन्न-भिन्न होती है।

(1) 2 and 3 only / केवल 2 और 3
(2) 1 and 2 only / केवल 1 और 2
(3) 1 and 4 only / केवल 1 और 4
(4) 3 and 4 only / केवल 3 और 4 ✔

Q.108 Which of the following is NOT a characteristic of good teaching?

निम्नलिखित में से कौन-सी अच्छे शिक्षण की विशेषता नहीं है?

(1) Planned and purposeful / नियोजित और उद्देश्यपूर्ण
(2) Based on learner needs / शिक्षार्थी की आवश्यकताओं पर आधारित
(3) Flexible and dynamic / लचीला और गतिशील
(4) Rigid and authoritarian / कठोर और सत्तावादी ✔

Q.109 Which of the following statements is/are correct about the 'role of materials' in child's play?
a) To provide meaningful stimulation that supports exploration, creativity, and learning
b) To serve as a source of entertainment

बच्चे के खेल में 'सामग्रियों की भूमिका' के संबंध में निम्नलिखित में से कौन-सा/से कथन सही है/हैं?
a) अन्वेषण, रचनात्मकता और अधिगम में सहायक सार्थक उद्दीपन प्रदान करना
b) मनोरंजन के स्रोत के रूप में कार्य करना

(1) Only b / केवल b
(2) Both a and b / a और b दोनों
(3) Neither a nor b / न तो a और न ही b
(4) Only a / केवल a ✔

Q.110 Match the following stages of reading phases to their descriptions.
Phases Descriptions
1) Pre-Alphabetic a) Can fully analyse the spellings of words and understand letter-sound relationships
2) Partial Alphabetic b) Combine spelling patterns into 'multi-letter units' and use these to read sight words
3) Full Alphabetic c) Attend to distinctive visual cues such as logos and symbols
4) Consolidated Alphabetic d) Knowing some letters and sounds and using those phonetic clues while reading
पठन चरणों के निम्नलिखित चरणों का उनके विवरणों से मिलान कीजिए।
चरण विवरण
1) पूर्व-वर्णमाला (प्री-अल्फाबेटिक) a) शब्दों की वर्तनी का पूर्ण विश्लेषण कर सकते हैं और अक्षर-ध्वनि संबंधों को समझते हैं
2) आंशिक वर्णमाला (पार्शियल अल्फाबेटिक) b) वर्तनी प्रतिरूपों को 'बहु-अक्षर इकाइयों' में संयोजित करते हैं और इनका उपयोग दृष्टि शब्दों को पढ़ने में करते हैं
3) पूर्ण वर्णमाला (फुल अल्फाबेटिक) c) लोगो और प्रतीकों जैसे विशिष्ट दृश्य संकेतों पर ध्यान देते हैं
4) समेकित वर्णमाला (कंसोलिडेटेड अल्फाबेटिक) d) कुछ अक्षरों और ध्वनियों को जानना और पढ़ते समय उन ध्वन्यात्मक संकेतों का उपयोग करना

(1) 1-c, 2-d, 3-a, 4-b ✔
(2) 1-d, 2-c, 3-b, 4-a
(3) 1-b, 2-a, 3-d, 4-c
(4) 1-c, 2-a, 3-d, 4-b

Q.111 The short-term and long-term risks seen in children due to their exposure to early formal education are _____ and _____, respectively.
प्रारंभिक औपचारिक शिक्षा के संपर्क में आने के कारण बच्चों में देखे जाने वाले अल्पकालिक और दीर्घकालिक जोखिम क्रमशः _____ और _____ हैं।

(1) irritability; helplessness / चिड़चिड़ापन; असहायता
(2) indifference; hatred towards learning / उदासीनता; अधिगम के प्रति घृणा
(3) low grasping ability; moderate intelligence / कम ग्रहण क्षमता; मध्यम बुद्धि
(4) stress; low intellectual development / तनाव; निम्न बौद्धिक विकास ✔

Q.112 Which of the following classroom activities gives more scope for expression for Culturally-Linguistically diverse students?
निम्नलिखित में से कौन-सी कक्षा गतिविधि सांस्कृतिक-भाषाई रूप से विविध छात्रों को अभिव्यक्ति के लिए अधिक अवसर प्रदान करती है?

(1) Writing worksheet / लेखन कार्यपत्रक (वर्कशीट)
(2) Drawing and colouring / चित्रकारी और रंग भरना ✔
(3) Group song / समूह गान
(4) Reading a poem / कविता पढ़ना

Q.113 When observing gross motor development, which setting is preferable?
स्थूल गामक विकास का अवलोकन करते समय, कौन-सा परिवेश बेहतर है?

(1) Dramatic play corner / नाटकीय खेल कोना
(2) Indoor classroom activities / कक्षा के भीतर की गतिविधियाँ
(3) Storytelling sessions / कहानी सुनाने के सत्र
(4) Outdoor play / बाहरी खेल ✔

Q.114 The medium of interaction in the ECCE centre should be home language or mother tongue. However, there may be more than one language as mother tongue, which may pose problems for children coming from different language backgrounds and dialects. It is therefore important to allow as many languages as are in the classroom to be used for expression. Identify the concept behind this paragraph, which the educators are trying to convey.

ECCE केंद्र में अंतःक्रिया का माध्यम घर की भाषा या मातृभाषा होना चाहिए।
हालाँकि, मातृभाषा के रूप में एक से अधिक भाषाएँ हो सकती हैं, जो विभिन्न भाषाई पृष्ठभूमियों और बोलियों से आने वाले बच्चों के लिए समस्याएँ उत्पन्न कर सकती हैं। इसलिए कक्षा में जितनी भी भाषाएँ हैं, उन सभी को अभिव्यक्ति के लिए उपयोग करने की अनुमति देना महत्वपूर्ण है।
इस अनुच्छेद के पीछे की उस अवधारणा की पहचान कीजिए, जिसे शिक्षक संप्रेषित करने का प्रयास कर रहे हैं।

(1) Multilingualism / बहुभाषावाद ✔
(2) Curricular issues / पाठ्यचर्या संबंधी मुद्दे
(3) Multi-age grouping / बहु-आयु समूहन
(4) Gender equality / लैंगिक समानता

Q.115 In the context of curriculum development, what is the primary purpose of needs assessment?

पाठ्यचर्या विकास के संदर्भ में, आवश्यकताओं के आकलन का प्राथमिक प्रयोजन क्या है?

(1) To select textbooks for the curriculum / पाठ्यचर्या के लिए पाठ्यपुस्तकों का चयन करना
(2) To determine what the curriculum should be like for a certain population / यह निर्धारित करना कि किसी निश्चित जनसंख्या के लिए पाठ्यचर्या कैसी होनी चाहिए ✔
(3) To implement the new curriculum immediately / नई पाठ्यचर्या को तुरंत लागू करना
(4) To evaluate the performance of teachers / शिक्षकों के निष्पादन का मूल्यांकन करना

Q.116 As per ECCE, children with disabilities and impairments must be given priority, and this gave rise to Inclusive education. The major disabilities and impairments are :Learning disability, Mental and Psychological disorders, Chronic Medical condition and:

ECCE के अनुसार, दिव्यांगता और अक्षमता वाले बच्चों को प्राथमिकता दी जानी चाहिए, और इसी से समावेशी शिक्षा का उदय हुआ। प्रमुख दिव्यांगताएँ और अक्षमताएँ हैं: अधिगम अक्षमता, मानसिक और मनोवैज्ञानिक विकार, दीर्घकालिक चिकित्सीय स्थिति और:

(1) Nutritional disorder / पोषण संबंधी विकार
(2) Sensory impairment / संवेदी अक्षमता ✔
(3) Societal issues / सामाजिक मुद्दे
(4) Maladaptive mindset / कुसमायोजी मानसिकता

Q.117 If a child falls and gets a fracture/sprain, what is the correct sequence of the first aid steps given below?
1. Wrap ice or a cold compress in a thin cloth and do not apply it for more than 20 minutes.
2. Call a paediatrician or seek emergency care.
3. If the injured area is painful, swollen or deformed, or if movement causes pain, wrap the area in a towel or soft cloth.
4. Make a splint with cardboard or any other sturdy material to keep the arm or leg in place.
5. Do not try to straighten the limb.

यदि कोई बच्चा गिर जाए और फ्रैक्चर/मोच आ जाए तो नीचे दिए गए प्राथमिक उपचार के चरणों का सही क्रम क्या है?
1. बर्फ या शीत संपीड को पतले कपड़े में लपेटकर 20 मिनट से अधिक समय तक न लगाएं।
2. किसी बाल रोग विशेषज्ञ को बुलाइए या आपातकाल देखभाल लीजिए।
3. यदि चोट वाले स्थान में वेदना हो, सूजन हो या वह विकृत हो, या गति करने से वेदना हो, तो उस स्थान को तौलिए या मुलायम कपड़े से लपेट लीजिए।
4. हाथ या पैर को अपने स्थान पर बनाए रखने के लिए कार्डबोर्ड या किसी अन्य मजबूत सामग्री से स्प्लिंट बनाइए।
5. अंग को सीधा करने का प्रयास न कीजिए।

(1) 1, 2, 3, 4, 5
(2) 3, 2, 1, 5, 4
(3) 3, 4, 5, 1, 2 ✔
(4) 4, 3, 5, 1, 2

Q.118 Most languages consist of sound segments with a range of:
अधिकांश भाषाएँ ध्वनि खंडों से बनी होती हैं, जिनकी सीमा होती है:

(1) 50-100 distinct phonemes / 50-100 विशिष्ट स्वनिम
(2) 20-60 distinct phonemes / 20-60 विशिष्ट स्वनिम ✔
(3) 10-50 distinct phonemes / 10-50 विशिष्ट स्वनिम
(4) 25-80 distinct phonemes / 25-80 विशिष्ट स्वनिम

Q.119 The Sustainable Development Goals (SDGs), adopted by the Government of India, has earmarked, as priority, 17 Goals for the welfare of the country.
Identify the third and fourth Goals, respectively, that concern the welfare of children.
[A] Good health and well-being [B] Quality education [C] Peace, justice and strong institutions [D] Affordable and clean energy

भारत सरकार द्वारा अपनाए गए सतत विकास लक्ष्यों (SDGs) में देश के कल्याण के लिए प्राथमिकता के रूप में 17 लक्ष्य निर्धारित किए गए हैं।
उन तीसरे और चौथे लक्ष्यों की क्रमशः पहचान कीजिए, जो बच्चों के कल्याण से संबंधित हैं।
[A] उत्तम स्वास्थ्य और खुशहाली [B] गुणवत्तापूर्ण शिक्षा [C] शांति, न्याय और सशक्त संस्थाएँ [D] सस्ती और स्वच्छ ऊर्जा

(1) B and D / B और D
(2) A and B / A और B ✔
(3) B and C / B और C
(4) A and C / A और C

Q.120 What does a well-designed ECCE programme ensure for every child?
एक सुनियोजित ECCE कार्यक्रम प्रत्येक बच्चे के लिए क्या सुनिश्चित करता है?

(1) Limited opportunities for exploration / अन्वेषण के सीमित अवसर
(2) A stress-free, stimulating and enabling learning environment / एक तनाव-मुक्त, उद्दीपक और सक्षम बनाने वाला अधिगम वातावरण ✔
(3) Uniform learning pace for all children / सभी बच्चों के लिए एकसमान अधिगम गति
(4) Exclusive focus on cognitive development / केवल संज्ञानात्मक विकास पर ध्यान केंद्रित करना

Q.121 Which activity can best help a nursery teacher manage stress and support self-development?
कौन-सी गतिविधि एक नर्सरी शिक्षक को तनाव प्रबंधन करने और आत्म-विकास में सर्वोत्तम रूप से सहायता कर सकती है?

(1) Avoiding all interactions with colleagues / सहकर्मियों के साथ सभी अंतःक्रियाओं से बचना
(2) Ignoring personal well-being / व्यक्तिगत कल्याण की उपेक्षा करना
(3) **Regular practice of meditation or yoga / ध्यान या योग का नियमित अभ्यास ✔**
(4) Skipping meals to save time / समय बचाने के लिए भोजन छोड़ना

Q.122 What is the importance of risk taking in outdoor learning?
बाहरी अधिगम (आउटडोर लर्निंग) में जोखिम उठाने का क्या महत्व है?

(1) It helps develop physical skills. / यह शारीरिक कौशल विकसित करने में सहायता करता है।
(2) It helps develop cognitive skills. / यह संज्ञानात्मक कौशल विकसित करने में सहायता करता है।
(3) It helps develop social skills. / यह सामाजिक कौशल विकसित करने में सहायता करता है।
(4) **It helps develop resilience and confidence. / यह लचीलापन (रेज़िलिएंस) और आत्मविश्वास विकसित करने में सहायता करता है। ✔**

Q.123 Which of the following is true regarding best practices for phonemic awareness instruction?
Statement 1- Clapping hands to show distinct parts of sentences and words.
Statement 2- Sorting pictures for isolating sounds.
स्वनिमिक जागरूकता (फोनेमिक अवेयरनेस) शिक्षण की सर्वोत्तम पद्धतियों के संबंध में निम्नलिखित में से कौन-सा सत्य है?
कथन 1- वाक्यों और शब्दों के अलग-अलग भागों को दर्शाने के लिए ताली बजाना।
कथन 2- ध्वनियों को पृथक करने के लिए चित्रों को छाँटना।

(1) Statement 1 is true and statement 2 is false. / कथन 1 सत्य है और कथन 2 असत्य है।
(2) **Both the statements are true. / दोनों कथन सत्य हैं। ✔**
(3) Statement 1 is false and statement 2 is true. / कथन 1 असत्य है और कथन 2 सत्य है।
(4) Both the statements are false. / दोनों कथन असत्य हैं।

Q.124 Match the following.
A. Period of the neonate 1. Development proceeds from head to toe
B. Prenatal period 2. Conception to birth
C. Biological process 3. Birth to one month
D. Cephalocaudal 4. Changes that are physical in nature
निम्नलिखित का मिलान कीजिए।
A. नवजात शिशु की अवधि 1. विकास सिर से पैर की ओर अग्रसर होता है
B. प्रसवपूर्व अवधि 2. गर्भधारण से जन्म तक
C. जैविक प्रक्रिया 3. जन्म से एक माह तक
D. शिरःपदाभिमुख (सेफालोकॉडल) 4. ऐसे परिवर्तन जो शारीरिक प्रकृति के होते हैं

(1) A: 1, B: 2, C: 3, D: 4
(2) **A: 3, B: 2, C: 4, D: 1 ✔**
(3) A: 2, B: 3, C: 4, D: 1
(4) A: 4, B: 3, C: 2, D: 1

Q.125 "I am thinking, and I know that everyone is thinking the same" refers to which of the following?

"मैं सोच रहा हूँ, और मैं जानता हूँ कि हर कोई यही सोच रहा है" निम्नलिखित में से किसे संदर्भित करता है?

(1) Illogical thinking / अतार्किक चिंतन

(2) Conservation / संरक्षण

(3) **Egocentrism / आत्मकेंद्रितता ✔**

(4) Animistic thinking / जीववादी चिंतन

Q.126 Which of the following best describes an effective approach for student-teachers to document child development observations during field practice?

निम्नलिखित में से कौन-सा, क्षेत्र अभ्यास के दौरान छात्र-शिक्षकों द्वारा बाल विकास अवलोकनों का दस्तावेजीकरण करने के एक प्रभावी दृष्टिकोण का सर्वोत्तम वर्णन करता है?

(1) **Recording specific behaviours using anecdotes and checklists / उपाख्यानों (एनेकडोट्स) और जाँच सूचियों का उपयोग करके विशिष्ट व्यवहारों को अभिलिखित करना ✔**

(2) Relying completely on verbal reports from the class teacher / पूरी तरह से कक्षा शिक्षक की मौखिक रिपोर्टों पर निर्भर रहना

(3) Giving only positive comments to avoid offering criticism / आलोचना से बचने के लिए केवल सकारात्मक टिप्पणियाँ देना

(4) Sharing personal opinions without using any clear evidence / किसी स्पष्ट साक्ष्य का उपयोग किए बिना व्यक्तिगत राय साझा करना

Q.127 Which of the following points are to be kept in mind while selecting a proper location for an ECCE centre?

A) Should be easily accessible

B) Have clean surroundings

C) Be safe

D) Can be inside a single room

ECCE केंद्र के लिए उचित स्थान का चयन करते समय निम्नलिखित में से किन बिंदुओं को ध्यान में रखा जाना चाहिए?

A) आसानी से पहुँच योग्य होना चाहिए

B) आसपास का वातावरण स्वच्छ होना चाहिए

C) सुरक्षित होना चाहिए

D) एक ही कमरे के अंदर हो सकता है

(1) Only C and D / केवल C और D

(2) Only A and B / केवल A और B

(3) **A, B and C / A, B और C ✔**

(4) Only A and D / केवल A और D

Q.128 What is the approach adopted by ECCE curriculum?

ECCE पाठ्यचर्या द्वारा अपनाया गया दृष्टिकोण क्या है?

(1) **Play and activity-based approach / खेल और गतिविधि-आधारित दृष्टिकोण ✔**

(2) Memorisation and repetition-based approach / रटने और पुनरावृत्ति-आधारित दृष्टिकोण

(3) Video and observation-based approach / वीडियो और अवलोकन-आधारित दृष्टिकोण

(4) Lecture and reading-based approach / व्याख्यान और पठन-आधारित दृष्टिकोण

QuickSarkari.com | WhatsApp Channel | Telegram: t.me/quick_sarkari

Q.129 Which of the following is NOT suited to be accepted as the objective of ECCE?

निम्नलिखित में से कौन-सा ECCE के उद्देश्य के रूप में स्वीकार किए जाने के लिए उपयुक्त नहीं है?

(1) Ensuring each child is valued, respected, feels safe and secure and develops a positive self concept. / यह सुनिश्चित करना कि प्रत्येक बच्चे को महत्व और सम्मान दिया जाए, वह स्वयं को सुरक्षित और संरक्षित अनुभव करे तथा एक सकारात्मक आत्म-अवधारणा विकसित करे।

(2) Keeping restrictive environment for children to ensure safety and emotional well-being of children. / बच्चों की सुरक्षा और भावनात्मक कल्याण सुनिश्चित करने के लिए बच्चों हेतु प्रतिबंधात्मक वातावरण रखना। ✔

(3) Stimulating intellectual curiosity of children by providing opportunities to explore, investigate and experiment. / अन्वेषण, अन्वीक्षण और प्रयोग करने के अवसर प्रदान करके बच्चों की बौद्धिक जिज्ञासा को उद्दीप्त करना।

(4) Enhancing social-skills of children by organising visits outside the school. / विद्यालय के बाहर भ्रमण आयोजित करके बच्चों के सामाजिक कौशल को बढ़ाना।

Q.130 The primary focus of a developmentally appropriate curriculum is _____.

विकासात्मक रूप से उपयुक्त पाठ्यचर्या का प्राथमिक केंद्र-बिंदु _____ है।

(1) rigid structure / कठोर संरचना

(2) teacher's preference / शिक्षक की पसंद

(3) standardised teaching / मानकीकृत शिक्षण

(4) child's needs / बच्चे की आवश्यकताएँ ✔

Q.131 The Rashtriya Bal Swasthya Karyakram (RBSK), an initiative under the National Health Mission, focusses on defects at birth seen in a child, diseases in children, deficiency diseases in children and _____.

राष्ट्रीय स्वास्थ्य मिशन के अंतर्गत एक पहल, राष्ट्रीय बाल स्वास्थ्य कार्यक्रम (RBSK), बच्चे में जन्म के समय देखे जाने वाले दोषों, बच्चों में रोगों, बच्चों में कमी से होने वाले रोगों और _____ पर केंद्रित है।

(1) depression / अवसाद

(2) developmental delays / विकासात्मक विलंब ✔

(3) distress factor / संकट कारक

(4) dependency factor / निर्भरता कारक

Q.132 Which of the following is the most effective strategy to foster children's understanding of the concept of zero?

शून्य की अवधारणा के बारे में बच्चों की समझ को बढ़ावा देने के लिए निम्नलिखित में से कौन-सी सबसे प्रभावी रणनीति है?

(1) Extensive practice in counting from 1-10 / 1-10 तक गिनती का व्यापक अभ्यास

(2) Memorising the number sequence including zero / शून्य सहित संख्या अनुक्रम को याद करना

(3) Relating zero to real-world situations, such as empty sets or the absence of objects / शून्य को वास्तविक जीवन की स्थितियों, जैसे रिक्त समुच्चय या वस्तुओं की अनुपस्थिति, से जोड़ना ✔

(4) Introducing zero as the 'nothing' number / शून्य को 'कुछ नहीं' वाली संख्या के रूप में प्रस्तुत करना

Q.133 Which of the following is the longest cranial nerve?

निम्नलिखित में से कौन-सी सबसे लंबी कपाल तंत्रिका है?

(1) Optic nerve / दृक् तंत्रिका (ऑप्टिक नर्व)

(2) Vagus nerve / वेगस तंत्रिका ✔

(3) Facial nerve / आनन तंत्रिका (फेशियल नर्व)

(4) Auditory nerve / श्रवण तंत्रिका

Q.134 Read the given statements and select the correct option.
a. Dusting, cleaning and sterilising equipment should be done regularly to avoid the spread of germs.
b. Toys made of washable materials should be washed and kept clean at all times.
c. Enough storage space is not necessary to facilitate easy access to materials.
d. Labelling is important in storage space.

दिए गए कथनों को पढ़िए और सही विकल्प का चयन कीजिए।
a. रोगाणुओं के प्रसार से बचने के लिए उपकरणों की धूल झाड़ना, सफाई और रोगाणुनाशन नियमित रूप से किया जाना चाहिए।
b. धोने योग्य सामग्री से बने खिलौनों को धोया जाना चाहिए और हर समय स्वच्छ रखा जाना चाहिए।
c. सामग्रियों तक आसान पहुँच की सुविधा के लिए पर्याप्त भंडारण स्थान आवश्यक नहीं है।
d. भंडारण स्थान में लेबल लगाना महत्वपूर्ण है।

(1) a and b are true, but c and d are false. / a और b सत्य हैं, लेकिन c और d असत्य हैं।
(2) a, b, c and d are false. / a, b, c और d असत्य हैं।
(3) a, b, c and d are true. / a, b, c और d सत्य हैं।
(4) a, b and d are true, but c is false. / a, b और d सत्य हैं, लेकिन c असत्य है। ✔

Q.135 Read the given statements about play in early childhood and select the correct option.
1. Play is a waste of time and has no role in learning.
2. Play is an essential part of early childhood education and contributes to cognitive, social and emotional development.

प्रारंभिक बाल्यावस्था में खेल के बारे में दिए गए कथनों को पढ़िए और सही विकल्प का चयन कीजिए।
1. खेल समय की बर्बादी है और अधिगम में इसकी कोई भूमिका नहीं है।
2. खेल प्रारंभिक बाल्यावस्था शिक्षा का एक अनिवार्य अंग है और संज्ञानात्मक, सामाजिक और भावनात्मक विकास में योगदान देता है।

(1) Both Statements 1 and 2 are correct / कथन 1 और 2 दोनों सही हैं
(2) Both Statements 1 and 2 are incorrect / कथन 1 और 2 दोनों गलत हैं
(3) Statement 1 is correct; Statement 2 is incorrect / कथन 1 सही है; कथन 2 गलत है
(4) Statement 1 is incorrect; Statement 2 is correct / कथन 1 गलत है; कथन 2 सही है ✔

Q.136 Which of the following activities promotes number sense development in young children?
a. Comparing quantities of objects
b. Reciting rhymes
c. Reading stories
d. Sorting objects by size and colour

निम्नलिखित में से कौन-सी गतिविधियाँ छोटे बच्चों में संख्या बोध के विकास को बढ़ावा देती हैं?
a. वस्तुओं की मात्राओं की तुलना करना
b. कविताएँ सुनाना
c. कहानियाँ पढ़ना
d. वस्तुओं को आकार और रंग के अनुसार छाँटना

(1) b and c / b और c
(2) a and c / a और c
(3) a and d / a और d ✔
(4) b and d / b और d

Q.137 Which of the following statements represent the benefits of inclusive education for children with special needs?
a. Ensure that children get equal educational opportunities in regular schools
b. Sensitise children and teachers to ensure that there is no discrimination
c. Set goals for children in the classroom according to their abilities and interests
d. Provide opportunities for interaction that would be possible in segregated settings
निम्नलिखित में से कौन-से कथन, विशेष आवश्यकता वाले बच्चों के लिए समावेशी शिक्षा के लाभों को निरूपित करते हैं?
a. यह सुनिश्चित करें कि बच्चों को नियमित स्कूलों में समान शैक्षिक अवसर प्राप्त हों
b. बच्चों और शिक्षकों को संवेदनशील बनाएं ताकि यह सुनिश्चित हो सके कि कोई भेदभाव न हो
c. कक्षा में बच्चों के लिए उनकी क्षमताओं और रुचियों के अनुसार लक्ष्य निर्धारित करें
d. अन्योन्यक्रिया के अवसर प्रदान करें जो पृथक्कृत सेटिंग्स में संभव होंगे

(1) a, c and d / a, c और d
(2) Only a and b / केवल a और b
(3) a, b and c / a, b और c ✔
(4) b, c and d / b, c और d

Q.138 What is the full form of IEP?
IEP का पूर्ण रूप क्या है?

(1) Innovative Educational Plan / Innovative Educational Plan (नवाचारी शैक्षिक योजना)
(2) Integrated Educational Plan / Integrated Educational Plan (एकीकृत शैक्षिक योजना)
(3) Individualised Educational Plan / Individualised Educational Plan (वैयक्तिकृत शैक्षिक योजना) ✔
(4) Institutional Educational Plan / Institutional Educational Plan (संस्थागत शैक्षिक योजना)

Q.139 What is the most appropriate way to greet and ask a stranger for directions?
किसी अजनबी का अभिवादन करने और उससे रास्ता पूछने का सबसे उपयुक्त तरीका क्या है?

(1) "Hello, where is the station?" / "नमस्ते, स्टेशन कहाँ है?"
(2) "Where is the station, please?" / "कृपया, स्टेशन कहाँ है?"
(3) "Hello, can you please tell me where the station is?" / "नमस्ते, क्या आप कृपया मुझे बता सकते हैं कि स्टेशन कहाँ है?" ✔
(4) "Tell me where the station is." / "मुझे बताओ कि स्टेशन कहाँ है।"

Q.140 Which policy is committed to give top priority to and serve street children, children of migrant labourers, and those suffering from HIV/ AIDS?
कौन-सी नीति सड़क पर रहने वाले बच्चों, प्रवासी श्रमिकों के बच्चों और HIV/ AIDS से पीड़ित बच्चों को सर्वोच्च प्राथमिकता देने और उनकी सेवा करने के लिए प्रतिबद्ध है?

(1) National Policy for Children, 2013 / राष्ट्रीय बाल नीति, 2013
(2) National Plan of Action for Children, 2016 / बच्चों के लिए राष्ट्रीय कार्य योजना, 2016 ✔
(3) National Health Policy / राष्ट्रीय स्वास्थ्य नीति
(4) National Nutrition Mission / राष्ट्रीय पोषण मिशन

Q.141 During field observation, why is maintaining a reflective journal important for student- teachers?
क्षेत्र अवलोकन के दौरान, छात्र-शिक्षकों के लिए चिंतनशील डायरी (रिफ्लेक्टिव जर्नल) रखना क्यों महत्वपूर्ण है?

(1) To track children's attendance / बच्चों की उपस्थिति पर नज़र रखने के लिए
(2) To reflect on daily experiences and learning / दैनिक अनुभवों और अधिगम पर चिंतन करने के लिए ✔
(3) To copy notes from other teachers / अन्य शिक्षकों के नोट्स की नकल करने के लिए
(4) To record personal shopping lists / व्यक्तिगत खरीदारी सूचियाँ अभिलिखित करने के लिए

Q.142 Identify whether the following statements are true or false.
Statement (A): Introducing children to the elements of nature can enhance their understanding of the world around them.
Statement (B): Direct experiences with water, air and earth allow children to connect more deeply with these elements.

पहचान कीजिए कि निम्नलिखित कथन सत्य हैं या असत्य।
कथन (A): बच्चों को प्रकृति के तत्वों से परिचित कराने से उनके आसपास की दुनिया के बारे में उनकी समझ बढ़ सकती है।
कथन (B): जल, वायु और पृथ्वी के साथ प्रत्यक्ष अनुभव बच्चों को इन तत्वों से अधिक गहराई से जुड़ने में सक्षम बनाते हैं।

(1) A is true but B is false. / A सत्य है लेकिन B असत्य है।
(2) A is false but B is true. / A असत्य है लेकिन B सत्य है।
(3) Both A and B are false. / A और B दोनों असत्य हैं।
(4) Both A and B are true. / A और B दोनों सत्य हैं। ✔

Q.143 Match the rights of children given in Column I with their significance given in Column II.
Rights Significance A Right to survival W Freedom from all forms of exploitation and abuse B Right to development X Freedom of expression, thought and decision making C Right to protection Y Right to attain his or her full cognitive, social, and physical potential D Right to participation Z Reaching the highest attainable standard of health

स्तंभ I में दिए गए बच्चों के अधिकारों का स्तंभ II में दिए गए उनके महत्व से मिलान कीजिए।
अधिकार महत्व A उत्तरजीविता का अधिकार W सभी प्रकार के शोषण और दुर्व्यवहार से मुक्ति B विकास का अधिकार X अभिव्यक्ति, विचार और निर्णय लेने की स्वतंत्रता C संरक्षण का अधिकार Y अपनी पूर्ण संज्ञानात्मक, सामाजिक और शारीरिक क्षमता प्राप्त करने का अधिकार D सहभागिता का अधिकार Z स्वास्थ्य के उच्चतम प्राप्य स्तर तक पहुँचना

(1) A - Z, B - Y, C - X, D - W
(2) A - Y, B - Z, C - X, D - W
(3) A - Y, B - W, C - Z, D - X
(4) A - Z, B - Y, C - W, D - X ✔

Q.144 Providing safe and secure space in schools caters to _____ of children.
विद्यालयों में सुरक्षित और संरक्षित स्थान प्रदान करना बच्चों के _____ को पूरा करता है।

(1) only the emotional development / केवल भावनात्मक विकास
(2) the physical development / शारीरिक विकास
(3) the language development / भाषा विकास
(4) the social and emotional development / सामाजिक और भावनात्मक विकास ✔

Q.145 Match the characteristics of First Aider in Column A with the corresponding descriptions in Column B.

Column A: Characteristics

1. Observant
2. Resourceful
3. Tactful
4. Dexterous

Column B: Descriptions

a. Able to handle a casualty without causing unnecessary pain and use appliances efficiently

b. Able to learn symptoms and history without asking thoughtless questions, securing confidence

c. Observe the situation and details

d. Able to use whatever is at hand to prevent further damage

स्तंभ A में दी गई प्राथमिक उपचारकर्ता (फर्स्ट एडर) की विशेषताओं का
स्तंभ B में दिए गए संगत विवरणों से मिलान कीजिए।

स्तंभ A: विशेषताएँ

1. सतर्क अवलोकनकर्ता (ऑब्ज़र्वेंट)
2. साधन-संपन्न (रिसोर्सफुल)
3. व्यवहार-कुशल (टैक्टफुल)
4. निपुण (डेक्सटरस)

स्तंभ B: विवरण

a. अनावश्यक पीड़ा पहुँचाए बिना घायल व्यक्ति को सँभालने और उपकरणों का कुशलतापूर्वक उपयोग करने में सक्षम

b. विचारहीन प्रश्न पूछे बिना लक्षणों और इतिहास को जानने में सक्षम, विश्वास प्राप्त करते हुए

c. स्थिति और विवरणों का अवलोकन करना

d. आगे की क्षति को रोकने के लिए जो कुछ भी उपलब्ध है उसका उपयोग करने में सक्षम

(1) 1-d, 2-c, 3-b, 4-a

(2) 1-c, 2-d, 3-b, 4-a ✔

(3) 1-b, 2-a, 3-d, 4-c

(4) 1-a, 2-b, 3-c, 4-d

Q.146 According to Lev Vygotsky, which concept explains how children learn best when given support slightly beyond their current ability?

लेव वायगोत्स्की के अनुसार, कौन-सी अवधारणा यह स्पष्ट करती है कि बच्चे अपनी वर्तमान क्षमता से थोड़ा आगे सहायता दिए जाने पर सर्वोत्तम रूप से कैसे सीखते हैं?

(1) Operant conditioning / क्रियाप्रसूत अनुबंधन

(2) Fixed intelligence quotient / स्थिर बुद्धि लब्धि

(3) Classical conditioning / शास्त्रीय अनुबंधन

(4) Zone of proximal development / समीपस्थ विकास का क्षेत्र ✔

Q.147 Which of the following skills are appropriate for children to acquire at the pre-primary stage?

निम्नलिखित में से कौन-से कौशल पूर्व-प्राथमिक स्तर पर बच्चों के अर्जित करने के लिए उपयुक्त हैं?

(1) Making simple comparisons and identifying shapes / सरल तुलनाएँ करना और आकृतियों की पहचान करना ✔

(2) Extensive reading and writing in any two languages / किन्हीं दो भाषाओं में व्यापक पठन और लेखन

(3) Advanced algebraic and geometric skills / उन्नत बीजगणितीय और ज्यामितीय कौशल

(4) The ability to conduct lab experiments / प्रयोगशाला प्रयोग करने की क्षमता

Q.148 Which of the following practices best reflects effective community involvement in early childhood education?

निम्नलिखित में से कौन-सी पद्धति प्रारंभिक बाल्यावस्था शिक्षा में प्रभावी सामुदायिक भागीदारी को सर्वोत्तम रूप से दर्शाती है?

(1) Relying solely on textbooks for cultural education / सांस्कृतिक शिक्षा के लिए केवल पाठ्यपुस्तकों पर निर्भर रहना

(2) Inviting community members only for annual day functions / समुदाय के सदस्यों को केवल वार्षिक उत्सव समारोहों के लिए आमंत्रित करना

(3) Limiting communication between school and local organisations / विद्यालय और स्थानीय संगठनों के बीच संचार को सीमित करना

(4) Using community resources to enhance learning and promote cultural awareness / अधिगम को बढ़ाने और सांस्कृतिक जागरूकता को बढ़ावा देने के लिए सामुदायिक संसाधनों का उपयोग करना ✔

Q.149 Select the INCORRECT statement.

गलत कथन का चयन कीजिए।

(1) Right to development is Right to receive education, support and care during early childhood. / विकास का अधिकार प्रारंभिक बाल्यावस्था के दौरान शिक्षा, सहायता और देखभाल प्राप्त करने का अधिकार है।

(2) Right to survival, protection, development and formal education are the core Rights of children. / उत्तरजीविता, संरक्षण, विकास और औपचारिक शिक्षा का अधिकार बच्चों के मूल अधिकार हैं। ✔

(3) Right to protection includes freedom from all forms of exploitation. / संरक्षण के अधिकार में सभी प्रकार के शोषण से मुक्ति शामिल है।

(4) Right to survival includes Right to life and best attainable standard of health. / उत्तरजीविता के अधिकार में जीवन का अधिकार और स्वास्थ्य का सर्वोत्तम प्राप्य स्तर शामिल है।

Q.150 Match the following.

A. Seriation 1. Back and forth movements between states of equilibrium and disequilibrium

B. Reflex actions 2. Ability to order objects along a quantitative dimension.

C. Organisation 3. Sucking and grasping

D. Equilibration 4. Grouping and reorganising information

निम्नलिखित का मिलान कीजिए।

A. क्रमबद्धता (सीरिएशन) 1. संतुलन और असंतुलन की अवस्थाओं के बीच आगे-पीछे की गतियाँ

B. प्रतिवर्त क्रियाएँ 2. किसी मात्रात्मक आयाम के अनुसार वस्तुओं को क्रम में रखने की क्षमता।

C. संगठन 3. चूसना और पकड़ना

D. साम्यधारण (इक्विलिब्रेशन) 4. सूचना का समूहन और पुनर्गठन

(1) A: 4, B: 3, C:2, D: 1

(2) A: 1, B: 2, C:3, D: 4

(3) A: 3, B: 2, C:4, D: 1

(4) A: 2, B: 3, C:4, D: 1 ✔

Q.151 What type of materials are needed for vertically organised classrooms?

ऊर्ध्वाधर रूप से संगठित कक्षाओं के लिए किस प्रकार की सामग्रियों की आवश्यकता होती है?

(1) Uniform textbooks for all grade levels / सभी कक्षा स्तरों के लिए एकसमान पाठ्यपुस्तकें

(2) Extra homework assignments / अतिरिक्त गृहकार्य

(3) Single-grade textbooks only / केवल एकल-कक्षा पाठ्यपुस्तकें

(4) Thematic lessons and graded self-access materials / विषयगत पाठ और श्रेणीबद्ध स्व-अधिगम सामग्रियाँ ✔

Q.152 The attention span of young children is _____ minutes and hence the duration of any activity planned as per the programme should be around _____ minutes.

छोटे बच्चों का ध्यान विस्तार _____ मिनट होता है और इसलिए कार्यक्रम के अनुसार नियोजित किसी भी गतिविधि की अवधि लगभग _____ मिनट होनी चाहिए।

(1) 15 to 20; 20 / 15 से 20; 20 ✔

(2) 30 to 40; 60 / 30 से 40; 60

(3) 30; 45

(4) 30 to 35; 50 / 30 से 35; 50

Q.153 According to Jean Piaget, at which stage of cognitive development are children unable to differentiate living and non-living objects?

जीन पियाजे के अनुसार, संज्ञानात्मक विकास की किस अवस्था में बच्चे सजीव और निर्जीव वस्तुओं में अंतर करने में असमर्थ होते हैं?

(1) Pre-operational stage / पूर्व-संक्रियात्मक अवस्था ✔

(2) Sensorimotor stage / संवेदी-गामक अवस्था

(3) Concrete operational stage / मूर्त संक्रियात्मक अवस्था

(4) Formal operational stage / औपचारिक संक्रियात्मक अवस्था

Q.154 Which of the following is NOT a factor leading to cerebral palsy during prenatal period?

निम्नलिखित में से कौन-सा, प्रसवपूर्व अवधि के दौरान प्रमस्तिष्क घात (सेरेब्रल पाल्सी) का कारण बनने वाला कारक नहीं है?

(1) Chromosomal abnormalities / गुणसूत्रीय असामान्यताएँ

(2) Toxic injuries / विषाक्त चोटें

(3) Heredity / आनुवंशिकता ✔

(4) Maternal anoxia / मातृ अनॉक्सिया (ऑक्सीजन की कमी)

Q.155 The ECCE personnel need to ensure that effective communication with parents supports the child's _____.

ECCE कर्मियों को यह सुनिश्चित करने की आवश्यकता है कि माता-पिता के साथ प्रभावी संप्रेषण बच्चे के _____ में सहायक हो।

(1) learning and development / अधिगम और विकास ✔

(2) growth and development / वृद्धि और विकास

(3) numeracy and literacy / संख्याज्ञान और साक्षरता

(4) reading and writing / पठन और लेखन

Q.156 Which would be the best activity by parents to get the child socially ready for school?

बच्चे को विद्यालय के लिए सामाजिक रूप से तैयार करने हेतु माता-पिता की सबसे अच्छी गतिविधि कौन-सी होगी?

(1) Comparing the child with neighbour's child / बच्चे की तुलना पड़ोसी के बच्चे से करना

(2) Being a liberal parent and encouraging the child to mingle with strangers / उदार माता-पिता बनना और बच्चे को अजनबियों से घुलने-मिलने के लिए प्रोत्साहित करना

(3) Giving elaborate instructions to the child / बच्चे को विस्तृत निर्देश देना

(4) Setting rules and informing the child the consequences for breaking them / नियम निर्धारित करना और बच्चे को उन्हें तोड़ने के परिणामों के बारे में बताना ✔

Q.157 Which is NOT an agent of gender socialisation?

कौन-सा लैंगिक समाजीकरण का अभिकर्ता नहीं है?

(1) Peers / साथी-समूह

(2) Nature / प्रकृति ✔

(3) Family / परिवार

(4) School / विद्यालय

Q.158 When planning and organising a pre-school education programme to promote gender diversity and inclusion, which of the following strategies is most effective?

लैंगिक विविधता और समावेशन को बढ़ावा देने के लिए पूर्व-प्राथमिक शिक्षा कार्यक्रम की योजना बनाते और उसे आयोजित करते समय, निम्नलिखित में से कौन-सी रणनीति सबसे प्रभावी है?

(1) Encouraging teachers to avoid discussing gender-related topics with children / शिक्षकों को बच्चों के साथ लिंग-संबंधी विषयों पर चर्चा करने से बचने के लिए प्रोत्साहित करना

(2) Arranging classroom seating so boys and girls are always in separate groups / कक्षा में बैठने की व्यवस्था ऐसी करना कि लड़के और लड़कियाँ हमेशा अलग-अलग समूहों में रहें

(3) Selecting learning materials that include diverse gender identities and family structures / ऐसी अधिगम सामग्रियों का चयन करना जिनमें विविध लैंगिक पहचानें और पारिवारिक संरचनाएँ शामिल हों ✔

(4) Designing activities that assign roles strictly based on traditional gender expectations / ऐसी गतिविधियाँ तैयार करना जो पारंपरिक लैंगिक अपेक्षाओं के आधार पर सख्ती से भूमिकाएँ सौंपती हों

Q.159 Which of the following ways are culturally-linguistically appropriate strategies to be employed in the classroom?

a. Encouraging social interactions

b. Adopting the mother tongue as medium of instruction in schools

c. Open dialogue among families and teachers

d. Learning only about our cultures and expectations

निम्नलिखित में से कौन-से तरीके कक्षा में अपनाई जाने वाली सांस्कृतिक-भाषाई रूप से उपयुक्त रणनीतियाँ हैं?

a. सामाजिक अंतःक्रियाओं को प्रोत्साहित करना

b. विद्यालयों में मातृभाषा को शिक्षण के माध्यम के रूप में अपनाना

c. परिवारों और शिक्षकों के बीच खुला संवाद

d. केवल अपनी संस्कृतियों और अपेक्षाओं के बारे में सीखना

(1) a, c and d / a, c और d

(2) a, b and d / a, b और d

(3) a, b and c / a, b और c ✔

(4) b, c and d / b, c और d

Q.160 Which is an essential characteristic of children at the ECE stage?

ECE स्तर पर बच्चों की एक आवश्यक विशेषता कौन-सी है?

(1) They enjoy long lectures and note-taking. / वे लंबे व्याख्यान और नोट्स लेना पसंद करते हैं।

(2) They learn better through concrete experiences. / वे मूर्त अनुभवों के माध्यम से बेहतर सीखते हैं। ✔

(3) Abstract thinking is fully developed. / अमूर्त चिंतन पूर्ण रूप से विकसित होता है।

(4) They prefer competition over cooperation. / वे सहयोग की तुलना में प्रतिस्पर्धा को प्राथमिकता देते हैं।

Q.161 What is the best method to introduce young children to the concept of volume?

छोटे बच्चों को आयतन की अवधारणा से परिचित कराने की सबसे अच्छी विधि क्या है?

(1) Filling and emptying containers with sand or water / पात्रों को रेत या पानी से भरना और खाली करना ✔

(2) Using balance scales / तुला (बैलेंस स्केल) का उपयोग करना

(3) Sorting objects by shape / वस्तुओं को आकृति के अनुसार छाँटना

(4) Drawing geometric shapes / ज्यामितीय आकृतियाँ बनाना

Q.162 Which type of play, according to Smilansky, involves children using objects to construct something and involves sensorimotor activities?

स्मिलांस्की के अनुसार, किस प्रकार के खेल में बच्चे कुछ निर्मित करने के लिए वस्तुओं का उपयोग करते हैं और इसमें संवेदी-गामक गतिविधियाँ शामिल होती हैं?

(1) Games with Rules / नियमों वाले खेल

(2) Dramatic Play / नाटकीय खेल

(3) Constructive Play / रचनात्मक खेल ✔

(4) Functional Play / प्रकार्यात्मक खेल

Q.163 Why are nurturing relationships important for children's learning at an early stage?

प्रारंभिक अवस्था में बच्चों के अधिगम के लिए पोषणकारी संबंध क्यों महत्वपूर्ण हैं?

(1) They encourage competition and individualism. / वे प्रतिस्पर्धा और व्यक्तिवाद को प्रोत्साहित करते हैं।

(2) They reduce the need for play and exploration. / वे खेल और अन्वेषण की आवश्यकता को कम करते हैं।

(3) They make children dependent on adults. / वे बच्चों को वयस्कों पर निर्भर बनाते हैं।

(4) They help children feel safe, optimistic, curious and communicative. / वे बच्चों को सुरक्षित, आशावादी, जिज्ञासु और संवादशील अनुभव करने में सहायता करते हैं। ✔

Q.164 Jean Piaget was a child psychologist. He was a Swiss developmental psychologist and father of cognitive theory of children. Early childhood stage comes under Piaget's _____ of intelligence.

जीन पियाजे एक बाल मनोवैज्ञानिक थे। वे एक स्विस विकासात्मक मनोवैज्ञानिक और बच्चों के संज्ञानात्मक सिद्धांत के जनक थे। प्रारंभिक बाल्यावस्था, पियाजे की बुद्धि की _____ के अंतर्गत आती है।

(1) Concrete operational stage / मूर्त संक्रियात्मक अवस्था

(2) Sensory-motor stage / संवेदी-गामक अवस्था

(3) Formal operational stage / औपचारिक संक्रियात्मक अवस्था

(4) Preoperational stage / पूर्व-संक्रियात्मक अवस्था ✔

Q.165 Play with objects starts at _____ of age because children acquire eye-hand coordination for grasping objects.

वस्तुओं के साथ खेल _____ की आयु में शुरू होता है, क्योंकि बच्चे वस्तुओं को पकड़ने के लिए आँख-हाथ समन्वय प्राप्त कर लेते हैं।

(1) 7-8 months / 7-8 माह

(2) 3-4 months / 3-4 माह

(3) 1 year / 1 वर्ष

(4) 4-5 months / 4-5 माह ✔

Q.166 Which nutrient is primarily responsible for body-building and repair?
कौन-सा पोषक तत्व मुख्य रूप से शरीर निर्माण और मरम्मत के लिए उत्तरदायी है?

(1) Fats / वसा
(2) Vitamins / विटामिन
(3) Carbohydrates / कार्बोहाइड्रेट
(4) Proteins / प्रोटीन ✔

Q.167 Which of the following statements is FALSE based on the principles of programme planning?
कार्यक्रम नियोजन के सिद्धांतों के आधार पर निम्नलिखित में से कौन-सा कथन असत्य है?

(1) It is important for an ECCE programme to balance both children's development and contextual needs. / एक ECCE कार्यक्रम के लिए बच्चों के विकास और संदर्भगत आवश्यकताओं, दोनों के बीच संतुलन बनाना महत्वपूर्ण है।
(2) Young children learn best when they can play, observe and express themselves. / छोटे बच्चे तब सबसे अच्छा सीखते हैं जब वे खेल सकते हैं, अवलोकन कर सकते हैं और स्वयं को अभिव्यक्त कर सकते हैं।
(3) A high-quality ECCE programme should only focus on providing academic knowledge rather than offering diverse learning opportunities. / एक उच्च-गुणवत्ता वाले ECCE कार्यक्रम को विविध अधिगम अवसर प्रदान करने के बजाय केवल शैक्षणिक ज्ञान प्रदान करने पर ध्यान केंद्रित करना चाहिए। ✔
(4) According to developmental characteristics, all children are naturally motivated to learn and are capable of learning. / विकासात्मक विशेषताओं के अनुसार, सभी बच्चे स्वाभाविक रूप से सीखने के लिए प्रेरित होते हैं और सीखने में सक्षम होते हैं।

Q.168 The 'sensitive period' of development is a critical time for a child's learning when children learn a wide variety of new skills. There are five major skills. Four of them are given below. Identify the fifth one from the options.
i. Order skills
ii. Sensory skills
iii. Motor skills
iv. Social skills
विकास की 'संवेदनशील अवधि' बच्चे के अधिगम के लिए एक महत्वपूर्ण समय होता है, जब बच्चे विभिन्न प्रकार के नए कौशल सीखते हैं। पाँच प्रमुख कौशल होते हैं। उनमें से चार नीचे दिए गए हैं।
विकल्पों में से पाँचवें कौशल की पहचान कीजिए।
i. क्रम कौशल
ii. संवेदी कौशल
iii. गामक कौशल
iv. सामाजिक कौशल

(1) Self-defence skills / आत्मरक्षा कौशल
(2) Writing skills / लेखन कौशल
(3) Dramatisation skills / नाट्यीकरण कौशल
(4) Language skills / भाषा कौशल ✔

Q.169 Which of the following activities promotes children's understanding of patterns in early mathematics?
निम्नलिखित में से कौन-सी गतिविधि प्रारंभिक गणित में बच्चों की प्रतिरूपों (पैटर्न) की समझ को बढ़ावा देती है?

(1) Sitting quietly and listening to lectures / चुपचाप बैठना और व्याख्यान सुनना
(2) Memorising multiplication tables / पहाड़े याद करना
(3) Repeating the same activity every day / प्रतिदिन एक ही गतिविधि दोहराना
(4) Sorting coloured beads to create a sequence / एक अनुक्रम बनाने के लिए रंगीन मोतियों को छाँटना ✔

QuickSarkari.com | WhatsApp Channel | Telegram: t.me/quick_sarkari

Q.170 Arrange the following developmental stages of mathematical problem-solving in chronological order.
a. Trial and error
b. Using strategies based on prior knowledge
c. Developing systematic approaches
d. Reflecting on problem-solving processes
गणितीय समस्या-समाधान की निम्नलिखित विकासात्मक अवस्थाओं को कालानुक्रमिक क्रम में व्यवस्थित कीजिए।
a. प्रयास और त्रुटि
b. पूर्व ज्ञान पर आधारित रणनीतियों का उपयोग करना
c. व्यवस्थित दृष्टिकोण विकसित करना
d. समस्या-समाधान प्रक्रियाओं पर चिंतन करना

(1) a, b, c, d ✔
(2) c, d, b, a
(3) b, c, a, d
(4) b, a, d, c

Q.171 What is the purpose of nature walk in field observation?
क्षेत्र अवलोकन में प्रकृति भ्रमण (नेचर वॉक) का क्या उद्देश्य है?

(1) To work in the field / क्षेत्र में कार्य करना
(2) To provide physical exercise / शारीरिक व्यायाम प्रदान करना
(3) To promote observation and inquisitiveness / अवलोकन और जिज्ञासा को बढ़ावा देना ✔
(4) To break the monotony / नीरसता को तोड़ना

Q.172 State which of the following statements is/are correct.
(A) The healthy relationship between the ECCE centre and parents promotes strong family involvement in the child's learning.
(B) It can also bring positive change in the attitude of parents for the value of ECCE.
बताइए कि निम्नलिखित में से कौन-सा/से कथन सही है/हैं।
(A) ECCE केंद्र और माता-पिता के बीच स्वस्थ संबंध बच्चे के अधिगम में परिवार की सशक्त भागीदारी को बढ़ावा देता है।
(B) यह ECCE के महत्व के प्रति माता-पिता के दृष्टिकोण में भी सकारात्मक परिवर्तन ला सकता है।

(1) Both A and B are incorrect / A और B दोनों गलत हैं
(2) B is correct, A is incorrect / B सही है, A गलत है
(3) Both A and B are correct / A और B दोनों सही हैं ✔
(4) A is correct, B is incorrect / A सही है, B गलत है

Q.173 What is a key benefit of field observation for nursery teacher trainees?
नर्सरी शिक्षक प्रशिक्षुओं के लिए क्षेत्र अवलोकन का एक प्रमुख लाभ क्या है?

(1) It helps them memorise the content of the school curriculum. / यह उन्हें विद्यालय पाठ्यचर्या की विषयवस्तु याद करने में सहायता करता है।
(2) It provides real-life experience with children and classroom tasks. / यह बच्चों और कक्षा के कार्यों के साथ वास्तविक जीवन का अनुभव प्रदान करता है। ✔
(3) It completely replaces the need for learning theoretical concepts. / यह सैद्धांतिक अवधारणाओं को सीखने की आवश्यकता को पूरी तरह से समाप्त कर देता है।
(4) It allows them to avoid taking up classroom responsibilities. / यह उन्हें कक्षा के उत्तरदायित्व लेने से बचने का अवसर देता है।

Q.174 When selecting equipment and learning materials, why is it important to consider if they can be used by children of all abilities?

उपकरणों और अधिगम सामग्रियों का चयन करते समय, यह विचार करना क्यों महत्वपूर्ण है कि क्या उनका उपयोग सभी क्षमताओं वाले बच्चों द्वारा किया जा सकता है?

(1) To make cleaning easier / सफाई को आसान बनाने के लिए

(2) To save costs / लागत बचाने के लिए

(3) To keep children entertained / बच्चों का मनोरंजन करते रहने के लिए

(4) To ensure inclusivity and accessibility / समावेशिता और सुगम्यता सुनिश्चित करने के लिए ✔

Q.175 Which strategy best demonstrates anti-discriminatory practice in an early childhood classroom?

कौन-सी रणनीति प्रारंभिक बाल्यावस्था कक्षा में भेदभाव-विरोधी पद्धति को सर्वोत्तम रूप से प्रदर्शित करती है?

(1) Assigning classroom jobs by gender to promote fairness / निष्पक्षता को बढ़ावा देने के लिए लिंग के आधार पर कक्षा के कार्य सौंपना

(2) Using only stories that show traditional family structures / केवल पारंपरिक पारिवारिक संरचनाओं को दर्शाने वाली कहानियों का उपयोग करना

(3) Encouraging children to choose any activity, regardless of gender norms / लैंगिक मानदंडों की परवाह किए बिना बच्चों को कोई भी गतिविधि चुनने के लिए प्रोत्साहित करना ✔

(4) Seating boys and girls separately during group work / समूह कार्य के दौरान लड़कों और लड़कियों को अलग-अलग बैठाना

Q.176 State whether the following statements are correct or incorrect.

a. Weekly planning includes setting realistic goals and objectives.

b. Monthly planning does not help teachers stay on track and meet deadlines.

बताइए कि निम्नलिखित कथन सही हैं या गलत।

a. साप्ताहिक नियोजन में यथार्थवादी लक्ष्य और उद्देश्य निर्धारित करना शामिल है।

b. मासिक नियोजन शिक्षकों को सही दिशा में बने रहने और समय-सीमाओं को पूरा करने में सहायता नहीं करता है।

(1) a is correct; b is incorrect. / a सही है; b गलत है। ✔

(2) a and b are correct. / a और b सही हैं।

(3) a and b are incorrect. / a और b गलत हैं।

(4) a is incorrect; b is correct. / a गलत है; b सही है।

Q.177 What is Early Childhood Special Education (ECSE) in the ECCE setting?

ECCE परिवेश में प्रारंभिक बाल्यावस्था विशेष शिक्षा (ECSE) क्या है?

(1) Special education and related services provided to children below 7 years / 7 वर्ष से कम आयु के बच्चों को प्रदान की जाने वाली विशेष शिक्षा और संबंधित सेवाएँ

(2) Special education and related services provided to children below 10 years / 10 वर्ष से कम आयु के बच्चों को प्रदान की जाने वाली विशेष शिक्षा और संबंधित सेवाएँ

(3) Special education and related services provided to children from 3 years to 5 years / 3 वर्ष से 5 वर्ष तक की आयु के बच्चों को प्रदान की जाने वाली विशेष शिक्षा और संबंधित सेवाएँ ✔

(4) Special education and related services provided to children below 3 years / 3 वर्ष से कम आयु के बच्चों को प्रदान की जाने वाली विशेष शिक्षा और संबंधित सेवाएँ

QuickSarkari.com | WhatsApp Channel | Telegram: t.me/quick_sarkari

Q.178 Which of the following measures is NOT suitable for meeting individual differences in the classroom?
निम्नलिखित में से कौन-सा उपाय कक्षा में वैयक्तिक भिन्नताओं की पूर्ति के लिए उपयुक्त नहीं है?

(1) Rigid curriculum / कठोर पाठ्यचर्या ✔
(2) Having the knowledge of the individual's potentialities / व्यक्ति की संभावित क्षमताओं का ज्ञान होना
(3) Ability grouping / योग्यता के आधार पर समूहन
(4) Individualised instruction / वैयक्तिकृत अनुदेशन

Q.179 Which method encourages children to learn through play and exploration?
कौन-सी विधि बच्चों को खेल और अन्वेषण के माध्यम से सीखने के लिए प्रोत्साहित करती है?

(1) Play-way method / खेल-विधि (प्ले-वे मेथड) ✔
(2) Rote memorisation / रटकर याद करना
(3) Dictation method / श्रुतलेख विधि
(4) Lecture method / व्याख्यान विधि

Q.180 Which of the following issues CANNOT be discussed between parents and community members?
निम्नलिखित में से किस मुद्दे पर माता-पिता और समुदाय के सदस्यों के बीच चर्चा नहीं की जा सकती?

(1) Pollution in the area / क्षेत्र में प्रदूषण
(2) Diseases that affect children / बच्चों को होने वाले रोग
(3) Managing the difficult behaviour of individual children / व्यक्तिगत बच्चों के कठिन व्यवहार का प्रबंधन ✔
(4) Cleanliness in the neighbourhood / प्रतिवेश में स्वच्छता

Q.181 To co-construct, children need to develop the ability to _____ their ideas and build on others' ideas.
सह-निर्माण (को-कंस्ट्रक्ट) करने के लिए, बच्चों को अपने विचारों को _____ करने और दूसरों के विचारों पर आगे बढ़ने की क्षमता विकसित करने की आवश्यकता होती है।

(1) make / बनाने
(2) take / लेने
(3) create / सृजित
(4) share / साझा ✔

Q.182 The acquisition of which of the following abilities does NOT fall under 'cognitive development'?
निम्नलिखित में से किस क्षमता का अर्जन 'संज्ञानात्मक विकास' के अंतर्गत नहीं आता है?

(1) Ability to speak fluently / धाराप्रवाह बोलने की क्षमता ✔
(2) Ability to think and imagine / सोचने और कल्पना करने की क्षमता
(3) Ability to take decisions / निर्णय लेने की क्षमता
(4) Ability to categorise / वर्गीकरण करने की क्षमता

Q.183 Match the NEP 2020 components in Column A with their corresponding descriptions in Column B.
Column A: Components
1. Foundational Literacy and Numeracy
A) Including holistic adult education curricu topics of interest or use for local learners s
2. Critical Life Skills
B) Financial literacy, digital literacy, vocatio and family welfare
3. Vocational Skills Development
C) Including elementary, middle, and secon
4. Basic Education
D) To seek local employment
5. Continuing Education
E) Fundamental skills of reading, writing, an

स्तंभ A में दिए गए NEP 2020 के घटकों का
स्तंभ B में दिए गए उनके संगत विवरणों से मिलान कीजिए।
स्तंभ A: घटक
1. मूलभूत साक्षरता और संख्याज्ञान
A) स्थानीय शिक्षार्थियों के लिए रुचि या उपयोग के विषयों सहित समग्र प्रौढ़ शिक्षा पाठ्य
2. महत्वपूर्ण जीवन कौशल
B) वित्तीय साक्षरता, डिजिटल साक्षरता, व्यावसा और परिवार कल्याण
3. व्यावसायिक कौशल विकास
C) प्रारंभिक, मध्य और माध्य सहित
4. बुनियादी शिक्षा
D) स्थानीय रोजगार प्राप्त करने के लिए
5. सतत शिक्षा
E) पठन, लेखन औ के मूलभूत कौशल

(1) 1-E, 2-D, 3-C, 4-B, 5-A
(2) 1-E, 2-B, 3-D, 4-C, 5-A ✔
(3) 1-A, 2-B, 3-C, 4-D, 5-E
(4) 1-B, 2-A, 3-E, 4-C, 5-D

Q.184 Children are rejected for admission to preschools because of _____, which can destroy their self-confidence and self-esteem at an early age.

प्रीस्कूलों में प्रवेश के लिए _____ के कारण बच्चों को अस्वीकार कर दिया जाता है, जिससे कम आयु में ही उनका आत्म-विश्वास और आत्म-सम्मान नष्ट हो सकता है।

(1) Formative assessment / निर्माणात्मक मूल्यांकन (Formative assessment)
(2) Summative assessment / योगात्मक मूल्यांकन (Summative assessment)
(3) Formal tests / औपचारिक परीक्षाओं (Formal tests) ✔
(4) Informal assessment / अनौपचारिक मूल्यांकन (Informal assessment)

Q.185 What is the term for understanding the position of objects in relation to oneself and others?

स्वयं और दूसरों के सापेक्ष वस्तुओं की स्थिति को समझने के लिए क्या शब्द है?

(1) Measurement / मापन
(2) Shape recognition / आकृति पहचान
(3) Spatial awareness / स्थानिक जागरूकता ✔
(4) Size comparison / आकार तुलना

Q.186 In learner/child centred activity approach, the rationale for the choice of activity vests with the _____.

शिक्षार्थी/बाल-केंद्रित गतिविधि दृष्टिकोण में, गतिविधि के चयन का औचित्य _____ में निहित होता है।

(1) Teacher / शिक्षक

(2) Worker / कार्यकर्ता

(3) **Child / बच्चे ✔**

(4) Parent / माता-पिता

Q.187 Which of the following is an effective method for teaching children with visual impairment through non-visual modes?

निम्नलिखित में से कौन-सी, दृष्टिबाधित बच्चों को गैर-दृश्य माध्यमों से पढ़ाने की एक प्रभावी विधि है?

(1) Watching educational videos / शैक्षिक वीडियो देखना

(2) Reading silently / मौन पठन

(3) **Listening to detailed instructions / विस्तृत निर्देशों को सुनना ✔**

(4) Copying from the board / बोर्ड से नकल करना

Q.188 Sensory development relates to:

A) sense of hearing

B) sense of seeing

C) sense of classifying

D) sense of taste

संवेदी विकास का संबंध है:

A) सुनने की इंद्रिय से

B) देखने की इंद्रिय से

C) वर्गीकरण करने की इंद्रिय से

D) स्वाद की इंद्रिय से

(1) A, C and D / A, C और D

(2) A, B, C and D / A, B, C और D

(3) **A, B and D / A, B और D ✔**

(4) C and D / C और D

Q.189 Teaching is best described as a process that is:

शिक्षण को सबसे अच्छे रूप में ऐसी प्रक्रिया के रूप में वर्णित किया जाता है, जो है:

(1) A one-way communication / एकतरफा संप्रेषण

(2) A mechanical delivery of facts / तथ्यों का यांत्रिक प्रस्तुतीकरण

(3) Based only on textbook content / केवल पाठ्यपुस्तक की विषयवस्तु पर आधारित

(4) **An interaction between teacher and student / शिक्षक और छात्र के बीच एक अंतःक्रिया ✔**

Q.190 Puppets, both ready-made and made by the teacher with the children can be used to enhance one of the learning strategies used in the classroom. Which strategy would greatly benefit from use of puppets?

कठपुतलियों का, चाहे वे बनी-बनाई हों या शिक्षक द्वारा बच्चों के साथ मिलकर बनाई गई हों, उपयोग कक्षा में प्रयुक्त अधिगम रणनीतियों में से किसी एक को बढ़ाने के लिए किया जा सकता है। कठपुतलियों के उपयोग से किस रणनीति को अत्यधिक लाभ होगा?

(1) Toy-based learning / खिलौना-आधारित अधिगम

(2) Music and movement / संगीत और गति

(3) Conversations / वार्तालाप

(4) **Storytelling / कहानी सुनाना ✔**

Q.191 Match the following.
Domain of development Associated Skill
A. Cognitive
a) Gross and fine motor
B. Socio emotional
b) Communication, listening and speaking
C. Physical and motor
c) Understanding of self
D. Language
d) Thinking

निम्नलिखित का मिलान कीजिए।
विकास का क्षेत्र संबद्ध कौशल
A. संज्ञानात्मक
a) स्थूल और सूक्ष्म गामक
B. सामाजिक-भावनात्मक
b) संप्रेषण, सुनना और बोलना
C. शारीरिक और गामक
c) स्वयं की समझ
D. भाषा
d) चिंतन

(1) A-----b; B----d; C-----a; D-----c.
(2) A-----c; B----a; C-----d; D-----b.
(3) A-----d; B----c; C-----a; D-----b. ✔
(4) A-----d; B----c; C-----b; D-----a.

Q.192 In field observation, what is the importance of objective observation?
क्षेत्र अवलोकन में, वस्तुनिष्ठ अवलोकन का क्या महत्व होता है?

(1) Engaging with children / बच्चों के साथ जुड़ना
(2) Focusing on specific behaviours / विशिष्ट व्यवहारों पर ध्यान केंद्रित करना
(3) Avoiding bias / पूर्वाग्रह से बचना ✔
(4) Evaluating the effectiveness of teachers / शिक्षकों की प्रभावशीलता का मूल्यांकन करना

Q.193 Symbolic play happens at the age of:
प्रतीकात्मक खेल किस आयु में होता है?

(1) 2–7 years / 2–7 वर्ष ✔
(2) 0–2 years / 0–2 वर्ष
(3) 7–11 years / 7–11 वर्ष
(4) 11–16 years / 11–16 वर्ष

Q.194 _____ is the backbone of the education of the blind.
_____ दृष्टिहीनों की शिक्षा का आधार स्तंभ है।

(1) Visual aids / दृश्य सहायक सामग्री
(2) Primacy of speech / वाणी की प्रधानता
(3) Braille / ब्रेल ✔
(4) Oral approach / मौखिक दृष्टिकोण

Q.195 Which key strategy is emphasised in India's National ECCE Policy (2013) to ensure culturally relevant early childhood education?

सांस्कृतिक रूप से प्रासंगिक प्रारंभिक बाल्यावस्था शिक्षा सुनिश्चित करने के लिए भारत की राष्ट्रीय ECCE नीति (2013) में किस प्रमुख रणनीति पर बल दिया गया है?

(1) Development of locally contextualised curricula in mother tongue / मातृभाषा में स्थानीय रूप से संदर्भित पाठ्यचर्या का विकास ✔

(2) Exclusive use of digital learning for preschoolers / पूर्व-प्राथमिक बच्चों के लिए केवल डिजिटल अधिगम का उपयोग

(3) Appointment of only graduate teachers in preschools / पूर्व-प्राथमिक विद्यालयों में केवल स्नातक शिक्षकों की नियुक्ति

(4) Standardised English-only curriculum for all states / सभी राज्यों के लिए मानकीकृत केवल-अंग्रेजी पाठ्यचर्या

Q.196 To tackle the issue of malnutrition seen in the children of migrant labourers and tribes, which of the following schemes/policies, launched by the Government of India, would be helpful in addressing the issue?

प्रवासी श्रमिकों और जनजातियों के बच्चों में देखी जाने वाली कुपोषण की समस्या से निपटने के लिए, भारत सरकार द्वारा शुरू की गई निम्नलिखित में से कौन-सी योजना/नीति इस समस्या के समाधान में सहायक होगी?

(1) ICPS

(2) ICDS ✔

(3) RPWD

(4) POCSO

Q.197 The Government of India launched the Integrated Child Development Services scheme for child care and development, which covers 6 services. Four of them are:
i. Supplementary nutrition
ii. Nutrition and health education
iii. Health check-up
iv. Referral services Which are the 2 remaining services?

भारत सरकार ने बाल देखभाल और विकास के लिए समेकित बाल विकास सेवा योजना शुरू की, जिसमें 6 सेवाएँ शामिल हैं। उनमें से चार हैं:
i. पूरक पोषण
ii. पोषण और स्वास्थ्य शिक्षा
iii. स्वास्थ्य जाँच
iv. रेफरल सेवाएँशेष 2 सेवाएँ कौन-सी हैं?

(1) Pre-school formal education and Midday meals / पूर्व-प्राथमिक औपचारिक शिक्षा और मध्याह्न भोजन

(2) Secondary school formal education and Inclusive education / माध्यमिक विद्यालय औपचारिक शिक्षा और समावेशी शिक्षा

(3) Free books/ uniform and Transport facility / निःशुल्क पुस्तकें/ वर्दी और परिवहन सुविधा

(4) Pre-school non formal education and Immunisation / पूर्व-प्राथमिक अनौपचारिक शिक्षा और टीकाकरण ✔

Q.198 How can teachers make children more independent in their learning?

शिक्षक बच्चों को उनके अधिगम में अधिक स्वतंत्र कैसे बना सकते हैं?

(1) By providing a fixed routine without flexibility / बिना लचीलेपन के एक निश्चित दिनचर्या प्रदान करके

(2) By taking control of all tasks and decisions / सभी कार्यों और निर्णयों पर नियंत्रण रखकर

(3) By gradually releasing support as children become more confident in organising group tasks / जैसे-जैसे बच्चे समूह कार्यों को व्यवस्थित करने में अधिक आत्मविश्वासी होते जाएँ, वैसे-वैसे धीरे-धीरे सहायता कम करके ✔

(4) By focusing only on individual tasks without group activities / समूह गतिविधियों के बिना केवल व्यक्तिगत कार्यों पर ध्यान केंद्रित करके

Q.199 Match the principles in Column A with the corresponding descriptions in Column B, and select the correct option.
Column A: Principles
Column B: Descriptions
1. Preserve life
a. This includes the use of ice packs or applying a sling.
2. Ensure protection of the casualty from further harm
b. This includes preserving the life of the casualty and the rescuer.
3. Provide pain relief
c. This ensures that the first aid procedures do not worsen the patient's condition.
4. Prevent the condition from worsening
d. The treatment area needs to be safe and must not have excess people.
स्तंभ A में दिए गए सिद्धांतों का स्तंभ B में दिए गए संगत विवरणों से मिलान कीजिए, और सही विकल्प का चयन कीजिए।
स्तंभ A: सिद्धांत
स्तंभ B: विवरण
1. जीवन की रक्षा करना
a. इसमें आइस पैक का उपयोग या स्लिंग लगाना शामिल है।
2. घायल व्यक्ति की आगे की हानि से सुरक्षा सुनिश्चित करना
b. इसमें घायल व्यक्ति और बचावकर्ता के जीवन की रक्षा करना शामिल है।
3. दर्द से राहत प्रदान करना
c. यह सुनिश्चित करता है कि प्राथमिक उपचार प्रक्रियाएँ रोगी की स्थिति को और खराब न करें।
4. स्थिति को और बिगड़ने से रोकना
d. उपचार क्षेत्र सुरक्षित होना चाहिए और वहाँ अधिक लोग नहीं होने चाहिए।

(1) 1-b, 2-a, 3-d, 4-c
(2) 1-a, 2-b, 3-c, 4-d
(3) 1-b, 2-d, 3-a, 4-c ✓
(4) 1-d, 2-c, 3-b, 4-a

Q.200 Which of the following practices best reflects effective community involvement in early childhood education?
निम्नलिखित में से कौन-सी पद्धति प्रारंभिक बाल्यावस्था शिक्षा में प्रभावी सामुदायिक भागीदारी को सर्वोत्तम रूप से दर्शाती है?

(1) Restricting communication between school and local organisations / विद्यालय और स्थानीय संगठनों के बीच संचार को प्रतिबंधित करना
(2) Using community resources to support learning and cultural awareness / अधिगम और सांस्कृतिक जागरूकता में सहायता के लिए सामुदायिक संसाधनों का उपयोग करना ✓
(3) Depending entirely on textbooks for teaching about culture and tradition / संस्कृति और परंपरा के बारे में पढ़ाने के लिए पूरी तरह से पाठ्यपुस्तकों पर निर्भर रहना
(4) Involving community members only during annual school functions / समुदाय के सदस्यों को केवल वार्षिक विद्यालय समारोहों के दौरान शामिल करना

Answer Key / उत्तर कुंजी

1 4	**2** 3	**3** 2	**4** 4	**5** 3	**6** 2	**7** 3	**8** 1	**9** 4	**10** 3	**11** 3	**12** 4	**13** 1	**14** 3	**15** 3
16 1	**17** 2	**18** 1	**19** 4	**20** 2	**21** 4	**22** 2	**23** 4	**24** 2	**25** 2	**26** 3	**27** 2	**28** 1	**29** 2	**30** 2
31 1	**32** 4	**33** 1	**34** 2	**35** 3	**36** 4	**37** 2	**38** 4	**39** 1	**40** 4	**41** 4	**42** 3	**43** 3	**44** 3	**45** 3

46 2	**47** 3	**48** 1	**49** 3	**50** 1	**51** 3	**52** 3	**53** 4	**54** 1	**55** 4	**56** 3	**57** 2	**58** 1	**59** 4	**60** 2
61 1	**62** 3	**63** 4	**64** 2	**65** 2	**66** 1	**67** 3	**68** 4	**69** 3	**70** 2	**71** 1	**72** 3	**73** 1	**74** 3	**75** 3
76 4	**77** 4	**78** 1	**79** 3	**80** 4	**81** 4	**82** 3	**83** 2	**84** 3	**85** 2	**86** 1	**87** 1	**88** 1	**89** 2	**90** 4
91 2	**92** 3	**93** 1	**94** 4	**95** 1	**96** 1	**97** 3	**98** 2	**99** 2	**100** 4	**101** 1	**102** 1	**103** 3	**104** 2	**105** 4
106 3	**107** 4	**108** 4	**109** 4	**110** 1	**111** 4	**112** 2	**113** 4	**114** 1	**115** 2	**116** 2	**117** 3	**118** 2	**119** 2	**120** 2
121 3	**122** 4	**123** 2	**124** 2	**125** 3	**126** 1	**127** 3	**128** 1	**129** 2	**130** 4	**131** 2	**132** 3	**133** 2	**134** 4	**135** 4
136 3	**137** 3	**138** 3	**139** 3	**140** 2	**141** 2	**142** 4	**143** 4	**144** 4	**145** 2	**146** 4	**147** 1	**148** 4	**149** 2	**150** 4
151 4	**152** 1	**153** 1	**154** 3	**155** 1	**156** 4	**157** 2	**158** 3	**159** 3	**160** 2	**161** 1	**162** 3	**163** 4	**164** 4	**165** 4
166 4	**167** 3	**168** 4	**169** 4	**170** 1	**171** 3	**172** 3	**173** 2	**174** 4	**175** 3	**176** 1	**177** 3	**178** 1	**179** 1	**180** 3
181 4	**182** 1	**183** 2	**184** 3	**185** 3	**186** 3	**187** 3	**188** 3	**189** 4	**190** 4	**191** 3	**192** 3	**193** 1	**194** 3	**195** 1
196 2	**197** 4	**198** 3	**199** 3	**200** 2										

Quick Sarkari

Participant ID	
Participant Name	
Test Center Name	
Test Date	13/08/2025
Test Time	5:00 PM - 7:00 PM
Subject	Assistant Teacher Nursery

Section : **General intelligence and Reasoning Ability**

Q.1 **Y, Z, A, B, C, and D live on six different floors of the same building. The lowermost floor in the building is numbered 1, the floor above it is numbered 2 and so on till the topmost floor is numbered 6. A lives immediately above D. Only three people live between D and Y. B lives on an even-numbered floor but not on floor number 2. Z lives on an odd-numbered floor. A lives on the uppermost floor. Who lives on floor number 1?**

Ans
✗ 1. B
✗ 2. A
✗ 3. Z
✓ 4. Y

Question ID : **441009982281**
Option 1 ID : **4410093881593**
Option 2 ID : **4410093881592**
Option 3 ID : **4410093881591**
Option 4 ID : **4410093881590**

Q.2 **What should come in place of the question mark (?) in the given series?**

29 29 117 117 205 205 293 293 ?

Ans
✗ 1. 349
✗ 2. 393
✓ 3. 381
✗ 4. 367

Question ID : **441009980593**
Option 1 ID : **4410093874850**
Option 2 ID : **4410093874853**
Option 3 ID : **4410093874852**
Option 4 ID : **4410093874851**

QuickSarkari.com | WhatsApp Channel | Telegram: t.me/quick_sarkari

Q.3 **Select the set in which the numbers are related in the same way as are the numbers of the following sets.**

(NOTE: Operations should be performed on the whole numbers, without breaking down the numbers into their constituent digits. E.g. 13 – Operations on 13 such as adding to/subtracting from/multiplying with 13 can be performed. Breaking down 13 into 1 and 3 and then performing mathematical operations on 1 and 3 is not allowed.)

(21, 28.4, 24.2)
(33, 40.4, 36.2)

Ans
✗ 1. (39, 46.4, 41.2)
✓ 2. (41, 48.4, 44.2)
✗ 3. (52, 59.4, 56.2)
✗ 4. (48, 56.4, 51.2)

Question ID : **441009980571**
Option 1 ID : **4410093874764**
Option 2 ID : **4410093874763**
Option 3 ID : **4410093874762**
Option 4 ID : **4410093874765**

Q.4 **Select the set in which the numbers are related in the same way as are the numbers of the following sets.**

(NOTE: Operations should be performed on the whole numbers, without breaking down the numbers into their constituent digits. E.g. 13 – Operations on 13 such as adding to/subtracting from/multiplying with 13 can be performed. Breaking down 13 into 1 and 3 and then performing mathematical operations on 1 and 3 is not allowed.)

(65, 106, 83)
(38, 79, 56)

Ans
✗ 1. (26, 67, 34)
✗ 2. (77, 118, 85)
✗ 3. (51, 82, 69)
✓ 4. (42, 83, 60)

Question ID : **441009980573**
Option 1 ID : **4410093874772**
Option 2 ID : **4410093874771**
Option 3 ID : **4410093874770**
Option 4 ID : **4410093874773**

Q.5 **Based on the English alphabetical order, three of the following four letter-cluster pairs are alike in a certain way and thus form a group. Which letter-cluster pair DOES NOT belong to that group?**
(Note: The odd one out is not based on the number of consonants/vowels or their position in the letter cluster.)1092

Ans
✗ 1. KS-SZ
✗ 2. SA-AH
✓ 3. CK-KO
✗ 4. IQ-QX

Question ID : **441009839422**
Option 1 ID : **4410093310756**
Option 2 ID : **4410093310759**
Option 3 ID : **4410093310757**
Option 4 ID : **4410093310758**

Q.6 एक निश्चित कूट भाषा में,
'A + B' का अर्थ है कि 'A, B की बहन है',
'A – B' का अर्थ है कि 'A, B का भाई है',
'A x B' का अर्थ है कि 'A, B की पत्नी है',
'A ÷ B' का अर्थ है कि 'A, B का पिता है'।
यदि 'L + M x N – O ÷ P' है, तो L का P से क्या संबंध है?

Ans
✗ 1. माता के भाई की पत्नी की माता
✓ 2. पिता के भाई की पत्नी की बहन
✗ 3. पिता के भाई की पत्नी की माता
✗ 4. माता के भाई की पत्नी की बहन

Question ID : **441009982332**
Option 1 ID : **4410093881797**
Option 2 ID : **4410093881794**
Option 3 ID : **4410093881795**
Option 4 ID : **4410093881796**

Q.7 निम्नलिखित अक्षर, प्रतीक शृंखला का संदर्भ लीजिए तथा नीचे दिए गए प्रश्न का उत्तर दीजिए। गिनती केवल बाएँ से दाएँ की जानी है।

(बाएँ) K Q & U $ P T Ω G @ E % R Ω Y # * £ B (दाएँ)

ऐसे कितने प्रतीक हैं, जिनमें से प्रत्येक के ठीक पहले एक स्वर है, लेकिन ठीक बाद एक स्वर नहीं है?

Ans
✗ 1. तीन
✗ 2. एक भी नहीं
✓ 3. दो
✗ 4. एक

Question ID : **441009838914**
Option 1 ID : **4410093308727**
Option 2 ID : **4410093308724**
Option 3 ID : **4410093308726**
Option 4 ID : **4410093308725**

Q.8 XV 9 is related to QN 15 in a certain way. In the same way, WK 11 is related to PC 17. To which of the following is UW 17 related, following the same logic?

Ans
✓ 1. NO 23
✗ 2. ON 32
✗ 3. NO 32
✗ 4. ON 23

Question ID : **441009982314**
Option 1 ID : **4410093881722**
Option 2 ID : **4410093881725**
Option 3 ID : **4410093881723**
Option 4 ID : **4410093881724**

Q.9 In the following triads, each group of letters is related to the subsequent one following a certain logic. Select from the given options, the one which follows the same logic.

ALMS – LMSA – MLSA
BOAT – OATB – AOTB

Ans
✗ 1. DAWN – AWDN – AWND
✗ 2. DROP – RODP – ROPD
✗ 3. EXAM – XAEM – XAME
✓ 4. CASE – ASEC – SAEC

Question ID : **441009982272**
Option 1 ID : **4410093881554**
Option 2 ID : **4410093881556**
Option 3 ID : **4410093881557**
Option 4 ID : **4410093881555**

Q.10 Refer to the following number, symbol series and answer the question that follows. All numbers are single digit numbers only. Counting to be done from left to right only.

(Left) 1 & 3 6 % 4 @ 8 $ 7 % 2 Ω # * 9 £ 5 (Right)

How many such symbols are there, each of which is immediately preceded by an odd number but not immediately followed by an even number?570

Ans
✗ 1. Three
✗ 2. None
✓ 3. Two
✗ 4. One

Question ID : **441009838900**
Option 1 ID : **4410093308671**
Option 2 ID : **4410093308668**
Option 3 ID : **4410093308670**
Option 4 ID : **4410093308669**

Q.11 C, D, E, F, G, Y and Z are sitting around a circular table facing the centre. F sits third to the left of G. Only three people sit between C and D when counted from the right of C. E sits second to the right of C. Z is an immediate neighbour of C and E. Who sits second to the left of G?

Ans
✗ 1. C
✗ 2. Y
✓ 3. D
✗ 4. F

Question ID : **441009982370**
Option 1 ID : **4410093881949**
Option 2 ID : **4410093881948**
Option 3 ID : **4410093881946**
Option 4 ID : **4410093881947**

QuickSarkari.com | WhatsApp Channel | Telegram: t.me/quick_sarkari

Q.12 In a certain code language, 'DECK' is coded as '8793' and 'COED' is coded as '4398'. What is the code for 'O' in the given code language?1105

Ans
✗ 1. 8
✗ 2. 9
✗ 3. 3
✓ 4. 4

Question ID : **441009839435**
Option 1 ID : **4410093310810**
Option 2 ID : **4410093310811**
Option 3 ID : **4410093310809**
Option 4 ID : **4410093310808**

Q.13 What should come in place of the question mark (?) in the given series?

133 177 133 208 133 239 133 270 133 ?

Ans
✓ 1. 301
✗ 2. 189
✗ 3. 294
✗ 4. 133

Question ID : **441009980595**
Option 1 ID : **4410093874858**
Option 2 ID : **4410093874861**
Option 3 ID : **4410093874860**
Option 4 ID : **4410093874859**

Q.14 If 'D' stands for '÷', 'B' stands for '×', 'C' stands for '–' and 'A' stands for '+', what will come in place of the question mark '?' in the following equation?
12 B 36 D 9 A 52 C 36 = ?

Ans
✗ 1. 72
✗ 2. 70
✓ 3. 64
✗ 4. 66

Question ID : **441009980638**
Option 1 ID : **4410093875030**
Option 2 ID : **4410093875031**
Option 3 ID : **4410093875033**
Option 4 ID : **4410093875032**

QuickSarkari.com | WhatsApp Channel | Telegram: t.me/quick_sarkari

Q.15 Based on the English alphabetical order, three of the following four letter-cluster pairs are alike in a certain way and thus form a group. Which letter-cluster pair DOES NOT belong to that group?
(Note: The odd one out is not based on the number of consonants/vowels or their position in the letter-cluster.)

Ans
✗ 1. MI - QG
✗ 2. VF - ZD
✓ 3. CR - GO
✗ 4. JY - NW

Question ID : **441009982275**
Option 1 ID : **4410093881566**
Option 2 ID : **4410093881568**
Option 3 ID : **4410093881567**
Option 4 ID : **4410093881569**

Q.16 E, F, G, S, T and Z live on six different floors of the same building. The lowermost floor in the building is numbered 1, the floor above it is numbered 2 and so on till the topmost floor is numbered 6. Only two people live between S and G. Only T lives above E. Z lives on an even-numbered floor. No one lives below S. How many people live between F and T?

Ans
✓ 1. Two
✗ 2. One
✗ 3. Zero
✗ 4. Three

Question ID : **441009982292**
Option 1 ID : **4410093881636**
Option 2 ID : **4410093881635**
Option 3 ID : **4410093881634**
Option 4 ID : **4410093881637**

Q.17 In a certain code language, 'CREW' is coded as '5468' and 'WEAR' is coded as '8615'. What is the code for 'A' in the given code language?1103

Ans
✗ 1. 6
✓ 2. 1
✗ 3. 8
✗ 4. 5

Question ID : **441009839433**
Option 1 ID : **4410093310801**
Option 2 ID : **4410093310800**
Option 3 ID : **4410093310803**
Option 4 ID : **4410093310802**

QuickSarkari.com | WhatsApp Channel | Telegram: t.me/quick_sarkari

Q.18 Read the given statement(s) and conclusions carefully. Assuming that the information given in the statement(s) is true, even if it appears to be at variance with commonly known facts, decide which of the given conclusions logically follow(s) from the statement(s).

Statements:
All picnics are monsoons.
All clouds are smoke.
Some monsoons are clouds.

Conclusions:
(I) Some clouds are picnics.
(II) All monsoons are smoke.

Ans
✔ 1. Neither conclusion (I) nor (II) follow.
✘ 2. Only conclusion (I) follows.
✘ 3. Only conclusion (II) follows.
✘ 4. Both conclusions (I) and (II) follow.

Question ID : **441009982379**
Option 1 ID : **4410093881985**
Option 2 ID : **4410093881982**
Option 3 ID : **4410093881983**
Option 4 ID : **4410093881984**

Q.19 Which two numbers should be interchanged to make the following equation correct? (Note: The entire number should be interchanged and not individual digits of a given number.)

$6 \times 9 \times 2 - 42 + 8 \times 4 + (56 \div 7) + 24 = 125$

Ans
✘ 1. 42 and 24
✘ 2. 2 and 4
✘ 3. 42 and 56
✔ 4. 8 and 7

Question ID : **441009980626**
Option 1 ID : **4410093874985**
Option 2 ID : **4410093874983**
Option 3 ID : **4410093874984**
Option 4 ID : **4410093874982**

QuickSarkari.com | WhatsApp Channel | Telegram: t.me/quick_sarkari

Q.20 Identify the figure given in the options which when put in place of the question mark (?) will logically complete the series.

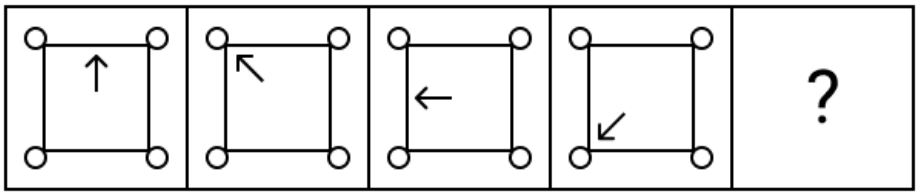

Ans

✗ 1.
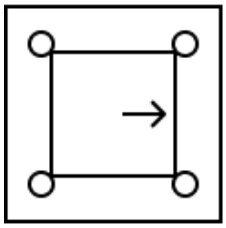

✓ 2.
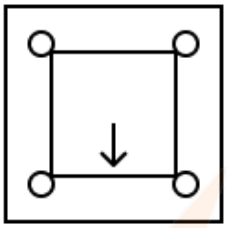

✗ 3.
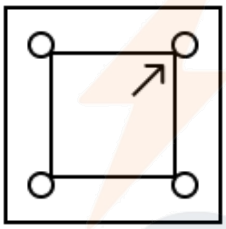

✗ 4.
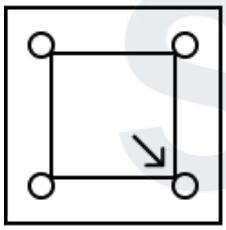

Question ID : **441009989237**
Option 1 ID : **4410093909246**
Option 2 ID : **4410093909245**
Option 3 ID : **4410093909248**
Option 4 ID : **4410093909247**

Section : **General Awareness**

QuickSarkari.com | WhatsApp Channel | Telegram: t.me/quick_sarkari

Q.1 कन्नड़ किस भाषा परिवार से संबंधित है?

Ans
✗ 1. ऑस्ट्रोएशियाटिक (Austroasiatic)
✗ 2. तिब्बती-बर्मन (Tibeto-Burman)
✗ 3. इंडो-आर्यन (Indo-Aryan)
✓ 4. द्रविड़ (Dravidian)

Question ID : **441009232597**
Option 1 ID : **441009908822**
Option 2 ID : **441009908820**
Option 3 ID : **441009908819**
Option 4 ID : **441009908821**

Q.2 सांची का स्तूप भारत के निम्नलिखित में से किस राज्य में स्थित है?

Ans
✗ 1. राजस्थान
✓ 2. मध्य प्रदेश
✗ 3. उत्तर प्रदेश
✗ 4. ओडिशा

Question ID : **441009974979**
Option 1 ID : **4410093852959**
Option 2 ID : **4410093852957**
Option 3 ID : **4410093852958**
Option 4 ID : **4410093852960**

Q.3 वर्ष 1860 में बंगाल में नील विद्रोह का नेतृत्व किसने किया?

Ans
✗ 1. महात्मा गांधी और बिष्णु विश्वास
✗ 2. कन्हाई लाल दत्त और दिगंबर विश्वास
✗ 3. अमर कृष्ण घोष और दिगंबर विश्वास
✓ 4. दिगंबर विश्वास और बिष्णु विश्वास

Question ID : **441009972602**
Option 1 ID : **4410093843451**
Option 2 ID : **4410093843449**
Option 3 ID : **4410093843450**
Option 4 ID : **4410093843452**

Q.4 Which festival in Assam is known to mark the Assamese New Year?

Ans
✗ 1. Losar
✓ 2. Bihu
✗ 3. Ugadi
✗ 4. Pongal

Question ID : **441009232953**
Option 1 ID : **441009910243**
Option 2 ID : **441009910244**
Option 3 ID : **441009910246**
Option 4 ID : **441009910245**

QuickSarkari.com | WhatsApp Channel | Telegram: t.me/quick_sarkari

Q.5 Which of the following Articles of the Indian Constitution provides for the establishment of a Panchayati Raj system?

Ans
✗ 1. Article 80
✓ 2. Article 40
✗ 3. Article 45
✗ 4. Article 73

Question ID : **441009973187**
Option 1 ID : **4410093845792**
Option 2 ID : **4410093845789**
Option 3 ID : **4410093845790**
Option 4 ID : **4410093845791**

Q.6 गांधार शैली में सामान्यतः किस सामग्री का उपयोग किया जाता था?

Ans
✗ 1. संगमरमर
✗ 2. कांस्य
✓ 3. नीला-धूसर अभ्रक या धूसर बलुआ पत्थर
✗ 4. लाल बलुआ पत्थर

Question ID : **441009972584**
Option 1 ID : **4410093843377**
Option 2 ID : **4410093843380**
Option 3 ID : **4410093843378**
Option 4 ID : **4410093843379**

Q.7 How many clubs participated in the Indian Super League 2024-2025?

Ans
✗ 1. 5
✓ 2. 13
✗ 3. 8
✗ 4. 19

Question ID : **441009228804**
Option 1 ID : **441009894866**
Option 2 ID : **441009894868**
Option 3 ID : **441009894867**
Option 4 ID : **441009894869**

Q.8 कला की मथुरा शैली में बुद्ध की मूर्तियों को उकेरने के लिए पहली बार स्थानीय _____ पत्थरों का उपयोग किया गया, जिसमें काले धब्बे होते थे।

Ans
✓ 1. लाल
✗ 2. हरा
✗ 3. सफेद
✗ 4. नीला

Question ID : **441009972669**
Option 1 ID : **4410093843718**
Option 2 ID : **4410093843719**
Option 3 ID : **4410093843717**
Option 4 ID : **4410093843720**

QuickSarkari.com | WhatsApp Channel | Telegram: t.me/quick_sarkari

Q.9 निम्नलिखित में से कौन-सा क्षेत्र भारत में अपवाह-तंत्र के रेडियल पैटर्न (radial pattern) का एक अच्छा उदाहरण है?

Ans
✗ 1. थार मरुस्थल
✓ 2. अमरकंटक पर्वतमाला
✗ 3. तटीय मैदान
✗ 4. उत्तरी मैदान

Question ID : **441009975011**
Option 1 ID : **4410093853087**
Option 2 ID : **4410093853085**
Option 3 ID : **4410093853088**
Option 4 ID : **4410093853086**

Q.10 Which of the following is NOT a primary function of carbohydrates in the human diet?

Ans
✗ 1. Aiding in digestion
✓ 2. Supporting immune function
✗ 3. Providing energy
✗ 4. Promoting satiety

Question ID : **441009891422**
Option 1 ID : **4410093519669**
Option 2 ID : **4410093519670**
Option 3 ID : **4410093519668**
Option 4 ID : **4410093519671**

Q.11 How long must a person have been ordinarily resident in the territory of India to be eligible for citizenship at the commencement of the Constitution under Article 5?

Ans
✓ 1. 5 years
✗ 2. 4 years
✗ 3. 7 years
✗ 4. 3 years

Question ID : **441009973174**
Option 1 ID : **4410093845739**
Option 2 ID : **4410093845738**
Option 3 ID : **4410093845740**
Option 4 ID : **4410093845737**

Q.12 Researchers at _____ have developed a Completely Mechanical Passive Motion Machine for Knee Rehabilitation that has been awarded the patent No. 553407.

Ans
✗ 1. DRDO
✗ 2. IIT Madras
✗ 3. Delhi University
✓ 4. IIT Ropar

Question ID : **441009228784**
Option 1 ID : **441009894789**
Option 2 ID : **441009894786**
Option 3 ID : **441009894787**
Option 4 ID : **441009894788**

QuickSarkari.com | WhatsApp Channel | Telegram: t.me/quick_sarkari

Q.13 Where is the Pitti Island, famous for its bird sanctuary, located in India?

Ans
✔ 1. Lakshadweep Islands
✘ 2. Andaman and Nicobar Islands
✘ 3. Puducherry
✘ 4. Daman and Diu

Question ID : **441009974998**
Option 1 ID : **4410093853034**
Option 2 ID : **4410093853033**
Option 3 ID : **4410093853036**
Option 4 ID : **4410093853035**

Q.14 The Parliament of India consists of:

Ans
✘ 1. Lok Sabha only
✔ 2. Lok Sabha, Rajya Sabha and the President
✘ 3. Rajya Sabha only
✘ 4. Lok Sabha and Rajya Sabha only

Question ID : **441009973168**
Option 1 ID : **4410093845713**
Option 2 ID : **4410093845716**
Option 3 ID : **4410093845714**
Option 4 ID : **4410093845715**

Q.15 1952 से, मध्य प्रदेश के साँची में महाबोधि महोत्सव का आयोजन प्रत्येक वर्ष किस माह के अंतिम रविवार को रायसेन जिले के सोची (Sochi) में किया जाता है, जो एक विश्व प्रसिद्ध पर्यटन स्थल और बौद्ध अनुयायियों का तीर्थ स्थल है?

Ans
✘ 1. मई
✘ 2. मार्च
✔ 3. नवंबर
✘ 4. जुलाई

Question ID : **441009232901**
Option 1 ID : **441009910036**
Option 2 ID : **441009910035**
Option 3 ID : **441009910038**
Option 4 ID : **441009910037**

Q.16 The Mahatma Gandhi National Rural Employment Guarantee Act (MGNREGA) aims to provide:

Ans
✘ 1. financial assistance for small businesses
✘ 2. skill development for youth
✘ 3. urban employment opportunities
✔ 4. guaranteed employment for 100 days in rural areas

Question ID : **44100973728**
Option 1 ID : **441009293217**
Option 2 ID : **441009293216**
Option 3 ID : **441009293214**
Option 4 ID : **441009293215**

QuickSarkari.com | WhatsApp Channel | Telegram: t.me/quick_sarkari

Q.17 Which political party led the National Democratic Alliance (NDA) in the 2024 general elections?

Ans
✗ 1. Indian National Congress
✓ 2. Bharatiya Janata Party
✗ 3. Communist Party of India
✗ 4. Bahujan Samaj Party

Question ID : **441009228341**
Option 1 ID : **441009893014**
Option 2 ID : **441009893015**
Option 3 ID : **441009893016**
Option 4 ID : **441009893017**

Q.18 Regional Rural banks were established in 1975 in India on the basis of the recommendation of which of the following committees?

Ans
✗ 1. Tendulkar committee
✗ 2. Narimam committee
✗ 3. Kelkar committee
✓ 4. Narasimham committee

Question ID : **44100981969**
Option 1 ID : **441009325492**
Option 2 ID : **441009325490**
Option 3 ID : **441009325491**
Option 4 ID : **441009325489**

Q.19 NABARD was set up in India in 1982 on the basis of the recommendation of which one of the following committees?

Ans
✓ 1. Sivaraman committee
✗ 2. Narimam committee
✗ 3. Kelkar committee
✗ 4. Narasimham committee

Question ID : **44100981979**
Option 1 ID : **441009325531**
Option 2 ID : **441009325530**
Option 3 ID : **441009325532**
Option 4 ID : **441009325529**

Q.20 Xylem tissues in plants contain living cells that are thin-walled and their cell walls are made up of cellulose. These cells, which store food materials in the form of starch or fat, are known as _____.

Ans
✗ 1. phloem
✗ 2. xylem fibres
✗ 3. tracheids
✓ 4. xylem parenchyma

Question ID : **4410091050756**
Option 1 ID : **4410094152093**
Option 2 ID : **4410094152095**
Option 3 ID : **4410094152094**
Option 4 ID : **4410094152096**

QuickSarkari.com | WhatsApp Channel | Telegram: t.me/quick_sarkari

Section : **Arithmetical and Numerical Ability**

Q.1 The value of x in the proportion 8 : 48 :: 11 : x is:

Ans
✗ 1. 64
✗ 2. 75
✗ 3. 59
✓ 4. 66

Question ID : **441009988182**
Option 1 ID : **4410093905018**
Option 2 ID : **4410093905019**
Option 3 ID : **4410093905020**
Option 4 ID : **4410093905017**

Q.2 The average pocket money of 18 boys in a hostel room is ₹1,250. Three more boys join the room, whose pocket money are ₹1,160, ₹1,370 and ₹1,480, respectively. Find the new average pocket money of all boys (correct to two places of decimals).

Ans
✗ 1. ₹1,380.36
✗ 2. ₹1,205.25
✓ 3. ₹1,262.38
✗ 4. ₹1,150.34

Question ID : **441009988244**
Option 1 ID : **4410093905268**
Option 2 ID : **4410093905266**
Option 3 ID : **4410093905267**
Option 4 ID : **4410093905265**

Q.3 सोनल को समान सजावट कार्य पूरा करने में, पारुल से तीन गुना अधिक समय तथा स्वीटी से चार गुना अधिक समय लगता है। साथ मिलकर, वे उस कार्य को 6 दिनों में पूरा कर सकती हैं। सोनल को अकेले उस कार्य का तीन गुना कार्य पूरा करने में, कितने दिनों का समय लगेगा?

Ans
✗ 1. 96
✗ 2. 48
✓ 3. 144
✗ 4. 192

Question ID : **441009988190**
Option 1 ID : **4410093905050**
Option 2 ID : **4410093905052**
Option 3 ID : **4410093905049**
Option 4 ID : **4410093905051**

QuickSarkari.com | WhatsApp Channel | Telegram: t.me/quick_sarkari

Q.4 An electric pump can fill a tank in 4 hours. Because of a leak in the tank, it took 5 hours to fill the tank. When the tank is full, how much time will the leak take to empty it (in hours)?

Ans
✗ 1. 18
✗ 2. 21
✓ 3. 20
✗ 4. 15

Question ID : **441009988277**
Option 1 ID : **4410093905399**
Option 2 ID : **4410093905400**
Option 3 ID : **4410093905398**
Option 4 ID : **4410093905397**

Q.5 The speed of a car increases by 3 kms after every one hour. If the distance travelled in the first one hour was 37 kms, what was the total distance travelled in 14 hours?

Ans
✗ 1. 787 km
✗ 2. 784 km
✓ 3. 791 km
✗ 4. 801 km

Question ID : **441009986947**
Option 1 ID : **4410093900079**
Option 2 ID : **4410093900080**
Option 3 ID : **4410093900077**
Option 4 ID : **4410093900078**

Q.6 Arvind bought an article for ₹x. He sold it to Biru at a loss of 5%. Biru spent ₹106 on its transportation and sold it to Minu at a profit of 60%. If Minu bought it for ₹1264, then what is the value of x?

Ans
✗ 1. 677
✓ 2. 720
✗ 3. 765
✗ 4. 738

Question ID : **441009988157**
Option 1 ID : **4410093904920**
Option 2 ID : **4410093904917**
Option 3 ID : **4410093904919**
Option 4 ID : **4410093904918**

QuickSarkari.com | WhatsApp Channel | Telegram: t.me/quick_sarkari

Q.7 If a six – digit number 650P12 is divisible by 252, then the value of $\frac{(3}{(}$

Ans
1. 3
2. 1
3. 2
4. 4

Question ID : **441009988411**
Option 1 ID : **4410093905934**
Option 2 ID : **4410093905935**
Option 3 ID : **4410093905933**
Option 4 ID : **4410093905936**

Q.8 Find the duration (in years) in which ₹1200 will amount to ₹2400 at a rate of 4% per annum simple interest.

Ans
1. 25
2. 27
3. 24
4. 26

Question ID : **441009988266**
Option 1 ID : **4410093905353**
Option 2 ID : **4410093905356**
Option 3 ID : **4410093905354**
Option 4 ID : **4410093905355**

Q.9 In a clearance sale of electronic items, an item whose marked price was ₹12020 is now sold for ₹10217, at d% discount on the marked price of the item The value of d is:

Ans
1. 17
2. 16
3. 15
4. 14

Question ID : **441009988130**
Option 1 ID : **4410093904812**
Option 2 ID : **4410093904811**
Option 3 ID : **4410093904809**
Option 4 ID : **4410093904810**

Q.10 Swaraj sold an article at a loss of 27%. If he had sold that article for ₹27 more, he would have gained 9%. Find the cost price of that article.

Ans
1. ₹75
2. ₹18
3. ₹36
4. ₹54

Question ID : **441009988240**
Option 1 ID : **4410093905250**
Option 2 ID : **4410093905249**
Option 3 ID : **4410093905251**
Option 4 ID : **4410093905252**

QuickSarkari.com | WhatsApp Channel | Telegram: t.me/quick_sarkari

Q.11 What will be the amount after 1 year, if ₹9000 is invested at 20% compound interest per annum, compounded half-yearly?

Ans
✗ 1. ₹10761
✗ 2. ₹10139
✓ 3. ₹10890
✗ 4. ₹10741

Question ID : **441009988148**
Option 1 ID : **4410093904883**
Option 2 ID : **4410093904884**
Option 3 ID : **4410093904881**
Option 4 ID : **4410093904882**

Q.12 **A boy runs 40 km in 5 hours. How long will he take to run 64 km at double the previous speed?**

Ans
✗ 1. 3 hours
✗ 2. 2 hours
✓ 3. 4 hours
✗ 4. 8 hours

Question ID : **441009988239**
Option 1 ID : **4410093905246**
Option 2 ID : **4410093905245**
Option 3 ID : **4410093905248**
Option 4 ID : **4410093905247**

Q.13 2 mm व्यास वाले 3,375 गोलाकार बूंदों का आयतन, एक गोलाकार बुलबुले के बराबर है। बुलबुले का व्यास ज्ञात कीजिए।

Ans
✗ 1. 30 cm
✗ 2. 1.5 cm
✗ 3. 15 cm
✓ 4. 3 cm

Question ID : **441009989002**
Option 1 ID : **4410093908313**
Option 2 ID : **4410093908316**
Option 3 ID : **4410093908315**
Option 4 ID : **4410093908314**

QuickSarkari.com | WhatsApp Channel | Telegram: t.me/quick_sarkari

Q.14 J and K started a business with ₹1,50,000 and ₹1,20,000 respectively. After 3 months, L joined with ₹2,00,000. At the end of the year, the business earned a profit of ₹2,10,000. J and K decided to donate 10% of their combined profit shares to charity. The remaining profit was distributed accordingly. Find the amount donated to charity.

Ans
✔ 1. ₹13,500
✘ 2. ₹13,900
✘ 3. ₹12,500
✘ 4. ₹12,800

Question ID : **441009988118**
Option 1 ID : **4410093904761**
Option 2 ID : **4410093904763**
Option 3 ID : **4410093904762**
Option 4 ID : **4410093904764**

Q.15 1500 people visited an exhibition on Saturday, whereas 1695 people visited it on Sunday. The percentage increase in the number of people visiting the exhibition on Sunday over that to visit it on Saturday was _____%.

Ans
✘ 1. 12.5
✘ 2. 11.5
✘ 3. 14
✔ 4. 13

Question ID : **441009988301**
Option 1 ID : **4410093905496**
Option 2 ID : **4410093905495**
Option 3 ID : **4410093905494**
Option 4 ID : **4410093905493**

QuickSarkari.com | WhatsApp Channel | Telegram: t.me/quick_sarkari

Q.16 Percentage-wise distribution of students studying science in seven different institutions are presented in the given pie chart.
Study the pie chart carefully and answer the question that follows.

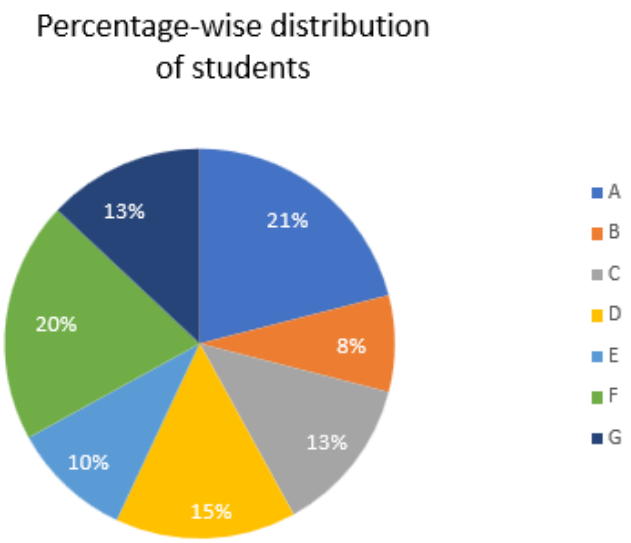

Find the ratio of the number of students studying science from Institute B to that studying science from Institute E.

Ans
✗ 1. 5 : 3
✗ 2. 5 : 4
✓ 3. 4 : 5
✗ 4. 3 : 5

Question ID : **441009250344**
Option 1 ID : **441009975114**
Option 2 ID : **441009975112**
Option 3 ID : **441009975111**
Option 4 ID : **441009975113**

Q.17 A number leaves a remainder of 0 when divided by both 3 and 9 but leaves a remainder of 2 when divided by 5. Which of the following could be that number?

Ans
✗ 1. 54
✓ 2. 72
✗ 3. 45
✗ 4. 63

Question ID : **441009988350**
Option 1 ID : **4410093905692**
Option 2 ID : **4410093905691**
Option 3 ID : **4410093905690**
Option 4 ID : **4410093905689**

QuickSarkari.com | WhatsApp Channel | Telegram: t.me/quick_sarkari

Q.18 A number is first increased by 32% and then decreased by 80% to get 330. What is 42% of that number?

Ans
✔ 1. 525
✘ 2. 645
✘ 3. 395
✘ 4. 412

Question ID : **441009988234**
Option 1 ID : **4410093905226**
Option 2 ID : **4410093905225**
Option 3 ID : **4410093905228**
Option 4 ID : **4410093905227**

Q.19 The volume (in m^3) of a cuboidal tank, whose dimensions are given as 4 m × 2 m × 46 m, is:

Ans
✘ 1. 377
✘ 2. 370
✘ 3. 400
✔ 4. 368

Question ID : **441009988995**
Option 1 ID : **4410093908288**
Option 2 ID : **4410093908287**
Option 3 ID : **4410093908286**
Option 4 ID : **4410093908285**

Q.20 The average salary of all the workers in a workshop is ₹8,000. The average salary of 7 technicians is ₹12,000, and the average salary of the rest is ₹7,000. The total number of workers in the workshop is:

Ans
✘ 1. 38
✔ 2. 35
✘ 3. 30
✘ 4. 32

Question ID : **441009988331**
Option 1 ID : **4410093905616**
Option 2 ID : **4410093905615**
Option 3 ID : **4410093905613**
Option 4 ID : **4410093905614**

Section : **Test of English Language and Comprehension**

QuickSarkari.com | WhatsApp Channel | Telegram: t.me/quick_sarkari

Q.1 Select the INCORRECTLY spelt word.

Ans
✔ 1. Liquer
✘ 2. Liquefy
✘ 3. Bologna
✘ 4. Imbroglio

Question ID : **441009845227**
Option 1 ID : **4410093333782**
Option 2 ID : **4410093333781**
Option 3 ID : **4410093333780**
Option 4 ID : **4410093333783**

Q.2 Select the most appropriate adjective to fill in the blank.

The _____ fabric felt soft and luxurious to the touch.

Ans
✘ 1. coarse
✘ 2. abrasive
✔ 3. silky
✘ 4. rough

Question ID : **441009842381**
Option 1 ID : **4410093322593**
Option 2 ID : **4410093322595**
Option 3 ID : **4410093322594**
Option 4 ID : **4410093322592**

Q.3 Select the most appropriate meaning of the given proverb.

Ignorance is bliss.

Ans
✘ 1. Innocence leads to problems in life.
✘ 2. Happiness appears when ignorance is eliminated.
✘ 3. Knowing everything is the key to happiness.
✔ 4. Sometimes, not knowing certain things can make you happier.

Question ID : **441009166855**
Option 1 ID : **441009660578**
Option 2 ID : **441009660577**
Option 3 ID : **441009660579**
Option 4 ID : **441009660580**

QuickSarkari.com | WhatsApp Channel | Telegram: t.me/quick_sarkari

Q.4 Sentences of a paragraph are given below in jumbled order. Arrange the sentences in the correct order to form a meaningful and coherent paragraph.

A) Women's empowerment is essential for achieving gender equality. When women become empowered, they can better challenge gender-based discrimination and inequality.
B) Women's empowerment refers to increasing women's social, economic and political power through various means. It is about giving women the freedom and opportunity to make decisions that impact their lives, communities and the world.
C) Additionally, women's empowerment is often hindered by violence and insecurity. Women who experience violence and insecurity are less likely to be able to pursue their goals and participate in their communities, which can prevent them from achieving empowerment.
D) Despite its importance, women's empowerment faces many challenges. One of the biggest challenges is cultural attitudes and beliefs perpetuating gender-based discrimination and inequality. These attitudes and beliefs are often deeply rooted in societies and can be challenging to change.

Ans
✗ 1. CDAB
✓ 2. BADC
✗ 3. ACBD
✗ 4. BCDA

Question ID : **441009837532**
Option 1 ID : **4410093303228**
Option 2 ID : **4410093303229**
Option 3 ID : **4410093303230**
Option 4 ID : **4410093303231**

Q.5 Select the most appropriate option to fill in the blanks. If no article is required, select the option with 'No article required'.

In a tense courtroom drama, _____ defence attorney presented a compelling argument to the jury, while _____ prosecutor scrutinised every detail of the evidence.

Ans
✗ 1. the; No article required
✓ 2. the; the
✗ 3. a; the
✗ 4. the; a

Question ID : **441009842376**
Option 1 ID : **4410093322575**
Option 2 ID : **4410093322573**
Option 3 ID : **4410093322572**
Option 4 ID : **4410093322574**

Q.6 Select the most appropriate ANTONYM of the given word.

Recognise

Ans
✓ 1. Deny
✗ 2. Discern
✗ 3. Twig
✗ 4. Assimilate

Question ID : **441009845222**
Option 1 ID : **4410093333761**
Option 2 ID : **4410093333763**
Option 3 ID : **4410093333760**
Option 4 ID : **4410093333762**

Q.7 Sentences of a paragraph are given below in jumbled order. Arrange the sentences in the correct order to form a meaningful and coherent paragraph.

A. Even though these students were invited to design skateboards for Birds on the Edge, it gave the students a chance to explore the parallels between their own lives and those of endangered species.
B. Students who no longer attend mainstream schools have taken part in a 'transformative' art project.
C. For a special exhibition held by North York Moors National Park, Pupil Referral Service in Scarborough have started working in collaboration for this 'transformative' art project for such students.
D. This was the ideal aim of the wildlife exhibition at the National Park's gallery – to raise awareness of the need to protect birds' habitats and it came naturally to the students who participated in it.

Ans
✗ 1. BADC
✗ 2. BDAC
✓ 3. BCAD
✗ 4. BCDA

Question ID : **441009837570**
Option 1 ID : **4410093303383**
Option 2 ID : **4410093303381**
Option 3 ID : **4410093303380**
Option 4 ID : **4410093303382**

Q.8 Sentences of a paragraph are given below in jumbled order. Arrange the sentences in the correct order to form a meaningful and coherent paragraph.

A. Unlike novels, poems leave much unsaid, inviting multiple interpretations.
B. Poetry is a unique form of literature that compresses meaning into few words.
C. This economy of language is what gives poetry its emotional power.
D. The reader must engage actively to grasp the full depth of a poem.

Ans
✗ 1. CDBA
✗ 2. DABC
✗ 3. ABCD
✓ 4. BCAD

Question ID : **441009230528**
Option 1 ID : **441009900915**
Option 2 ID : **441009900916**
Option 3 ID : **441009900914**
Option 4 ID : **441009900913**

Q.9 Select the option that can be used as a one-word substitute for the given group of words.

One who is violently against established beliefs and traditions

Ans
✗ 1. Intrepid
✗ 2. Incorrigible
✓ 3. Iconoclast
✗ 4. Introvert

Question ID : **441009837554**
Option 1 ID : **4410093303318**
Option 2 ID : **4410093303319**
Option 3 ID : **4410093303317**
Option 4 ID : **4410093303316**

Q.10 Select the most appropriate ANTONYM of the given word.

Affluent

Ans
1. Rare
2. Needy
3. Dull
4. Greedy

Question ID : **4410091052059**
Option 1 ID : **4410094157305**
Option 2 ID : **4410094157308**
Option 3 ID : **4410094157306**
Option 4 ID : **4410094157307**

Q.11 Select the most appropriate option to fill in the blanks. If no article is required, select the option with 'No article required'.

At the conference, an expert delivered a lecture on the impact of technology in _____ modern era, while _____ audience eagerly took notes.

Ans
1. the; the
2. No article required; the
3. the; No article required
4. No article required; No article required

Question ID : **441009842380**
Option 1 ID : **4410093322589**
Option 2 ID : **4410093322590**
Option 3 ID : **4410093322588**
Option 4 ID : **4410093322591**

Q.12 Select the most appropriate idiom that can substitute the underlined segment in the given sentence.

I heard that rumour about the company policy, but I will <u>not completely believe it</u> until I hear an official announcement.

Ans
1. take a rain check
2. take the bull by the horns
3. take it with a pinch of salt
4. take it with a rock of sorts

Question ID : **4410091053990**
Option 1 ID : **4410094165030**
Option 2 ID : **4410094165031**
Option 3 ID : **4410094165032**
Option 4 ID : **4410094165029**

QuickSarkari.com | WhatsApp Channel | Telegram: t.me/quick_sarkari

Q.13 Select the most appropriate option that can substitute the highlighted word in the given sentence.

During I was waiting for the bus, I listened to some music.

Ans
✔ 1. While
✘ 2. Beside
✘ 3. Between
✘ 4. Where

Question ID : **4410091005370**
Option 1 ID : **4410093973079**
Option 2 ID : **4410093973081**
Option 3 ID : **4410093973082**
Option 4 ID : **4410093973080**

Q.14 Select the most appropriate option to fill in the blank.

An airplane can fly _____ than a helicopter in the sky.

Ans
✘ 1. much high
✘ 2. highest
✔ 3. higher
✘ 4. high

Question ID : **441009842384**
Option 1 ID : **4410093322605**
Option 2 ID : **4410093322607**
Option 3 ID : **4410093322606**
Option 4 ID : **4410093322604**

Q.15 Select the most appropriate preposition to fill in the blank.

I have no interest _____ learning an obsolete language.

Ans
✘ 1. on
✘ 2. at
✔ 3. in
✘ 4. for

Question ID : **4410091006949**
Option 1 ID : **4410093979396**
Option 2 ID : **4410093979395**
Option 3 ID : **4410093979397**
Option 4 ID : **4410093979398**

QuickSarkari.com | WhatsApp Channel | Telegram: t.me/quick_sarkari

Comprehension:

Read the passage carefully and answer the questions that follow.

In today's digital age, attention has become one of the most valuable yet limited resources. With smartphones, social media, emails, and advertisements constantly competing for our focus, the human brain is struggling to adapt. Studies reveal that the average attention span has significantly decreased in the last two decades. This shift is not just about distraction—it affects productivity, creativity, and even mental well-being. Experts believe that constant switching between digital tasks reduces our ability to concentrate deeply, making it harder to absorb and process information.
While technology offers undeniable benefits—such as real-time communication, instant access to information, and global connectivity—it also encourages fragmented thinking. The problem lies not in the technology itself, but in how we use it. Researchers suggest strategies like mindfulness practices, digital detoxes, and scheduled focus time to rebuild attention spans and regain cognitive clarity. In a world overflowing with information, the real skill is not just accessing knowledge, but filtering and prioritizing it effectively. Mastering attention, in this sense, becomes a form of modern literacy and a necessity for personal and professional growth.

SubQuestion No : 16

Q.16 Select the most appropriate title for the passage.

Ans

✗ 1. Social Media and Society

✗ 2. The Rise of Artificial Intelligence

✗ 3. Technology and Human Relationships

✓ 4. The Attention Crisis in the Digital Era

Question ID : **441009158411**
Option 1 ID : **441009628595**
Option 2 ID : **441009628598**
Option 3 ID : **441009628596**
Option 4 ID : **441009628597**

Comprehension:

Read the passage carefully and answer the questions that follow.

In today's digital age, attention has become one of the most valuable yet limited resources. With smartphones, social media, emails, and advertisements constantly competing for our focus, the human brain is struggling to adapt. Studies reveal that the average attention span has significantly decreased in the last two decades. This shift is not just about distraction—it affects productivity, creativity, and even mental well-being. Experts believe that constant switching between digital tasks reduces our ability to concentrate deeply, making it harder to absorb and process information.
While technology offers undeniable benefits—such as real-time communication, instant access to information, and global connectivity—it also encourages fragmented thinking. The problem lies not in the technology itself, but in how we use it. Researchers suggest strategies like mindfulness practices, digital detoxes, and scheduled focus time to rebuild attention spans and regain cognitive clarity. In a world overflowing with information, the real skill is not just accessing knowledge, but filtering and prioritizing it effectively. Mastering attention, in this sense, becomes a form of modern literacy and a necessity for personal and professional growth.

SubQuestion No : 17

Q.17 What is the central theme of the passage?

Ans

✗ 1. How to improve memory

✗ 2. Negative impacts of social media

✗ 3. The development of artificial intelligence

✓ 4. The value and decline of attention in the digital world

Question ID : **441009158412**
Option 1 ID : **441009628600**
Option 2 ID : **441009628599**
Option 3 ID : **441009628602**
Option 4 ID : **441009628601**

Comprehension:

Read the passage carefully and answer the questions that follow.

In today's digital age, attention has become one of the most valuable yet limited resources. With smartphones, social media, emails, and advertisements constantly competing for our focus, the human brain is struggling to adapt. Studies reveal that the average attention span has significantly decreased in the last two decades. This shift is not just about distraction—it affects productivity, creativity, and even mental well-being. Experts believe that constant switching between digital tasks reduces our ability to concentrate deeply, making it harder to absorb and process information.
While technology offers undeniable benefits—such as real-time communication, instant access to information, and global connectivity—it also encourages fragmented thinking. The problem lies not in the technology itself, but in how we use it. Researchers suggest strategies like mindfulness practices, digital detoxes, and scheduled focus time to rebuild attention spans and regain cognitive clarity. In a world overflowing with information, the real skill is not just accessing knowledge, but filtering and prioritizing it effectively. Mastering attention, in this sense, becomes a form of modern literacy and a necessity for personal and professional growth.

SubQuestion No : 18

Q.18 What can be inferred from the passage?

Ans

✔ 1. Managing attention is key to thriving in a digital world

✘ 2. Social media is the main source of happiness

✘ 3. Reading books has become obsolete

✘ 4. The internet improves focus and mental clarity

Question ID : **441009158413**
Option 1 ID : **441009628604**
Option 2 ID : **441009628605**
Option 3 ID : **441009628606**
Option 4 ID : **441009628603**

Comprehension:

Read the passage carefully and answer the questions that follow.

In today's digital age, attention has become one of the most valuable yet limited resources. With smartphones, social media, emails, and advertisements constantly competing for our focus, the human brain is struggling to adapt. Studies reveal that the average attention span has significantly decreased in the last two decades. This shift is not just about distraction—it affects productivity, creativity, and even mental well-being. Experts believe that constant switching between digital tasks reduces our ability to concentrate deeply, making it harder to absorb and process information.
While technology offers undeniable benefits—such as real-time communication, instant access to information, and global connectivity—it also encourages fragmented thinking. The problem lies not in the technology itself, but in how we use it. Researchers suggest strategies like mindfulness practices, digital detoxes, and scheduled focus time to rebuild attention spans and regain cognitive clarity. In a world overflowing with information, the real skill is not just accessing knowledge, but filtering and prioritizing it effectively. Mastering attention, in this sense, becomes a form of modern literacy and a necessity for personal and professional growth.

SubQuestion No : 19

Q.19 What is the structure of the passage?

Ans

✘ 1. Example → Argument → Counterpoint

✘ 2. Definition → Comparison → Conclusion

✔ 3. Cause → Effect → Recommendation

✘ 4. Narrative → Conflict → Resolution

Question ID : **441009158414**
Option 1 ID : **441009628609**
Option 2 ID : **441009628610**
Option 3 ID : **441009628608**
Option 4 ID : **441009628607**

Comprehension:

Read the passage carefully and answer the questions that follow.

In today's digital age, attention has become one of the most valuable yet limited resources. With smartphones, social media, emails, and advertisements constantly competing for our focus, the human brain is struggling to adapt. Studies reveal that the average attention span has significantly decreased in the last two decades. This shift is not just about distraction—it affects productivity, creativity, and even mental well-being. Experts believe that constant switching between digital tasks reduces our ability to concentrate deeply, making it harder to absorb and process information.
While technology offers undeniable benefits—such as real-time communication, instant access to information, and global connectivity—it also encourages fragmented thinking. The problem lies not in the technology itself, but in how we use it. Researchers suggest strategies like mindfulness practices, digital detoxes, and scheduled focus time to rebuild attention spans and regain cognitive clarity. In a world overflowing with information, the real skill is not just accessing knowledge, but filtering and prioritizing it effectively. Mastering attention, in this sense, becomes a form of modern literacy and a necessity for personal and professional growth.

SubQuestion No : 20

Q.20 What is the tone of the passage?

Ans
✗ 1. Critical and Aggressive
✗ 2. Humourous
✗ 3. Sarcastic
✓ 4. Concerned and Informative

Question ID : **441009158415**
Option 1 ID : **441009628613**
Option 2 ID : **441009628614**
Option 3 ID : **441009628611**
Option 4 ID : **441009628612**

Section : **Test of Hindi Language and Comprehension**

Q.1 इनमें से अनेकार्थी शब्द कौन है?

Ans
✗ 1. विद्यालय
✗ 2. परिश्रम
✗ 3. खिड़की
✓ 4. हरि

Question ID : **441009323110**
Option 1 ID : **4410091258612**
Option 2 ID : **4410091258611**
Option 3 ID : **4410091258613**
Option 4 ID : **4410091258610**

Q.2 सही वाक्य-क्रम वाले वाक्य का चयन कीजिए-

Ans
✗ 1. भरतनाट्यम/ अत्यन्त/ छात्राओं ने/ सुन्दर/ प्रस्तुत किया
✗ 2. छात्राओं ने/ भरतनाट्यम/ सुन्दर/ अत्यन्त/ प्रस्तुत किया
✓ 3. छात्राओं ने/ अत्यन्त/ सुन्दर/ भरतनाट्यम/ प्रस्तुत किया
✗ 4. अत्यन्त/ सुन्दर/ छात्राओं ने/ प्रस्तुत/ भरतनाट्यम/ किया

Question ID : **441009326054**
Option 1 ID : **4410091270507**
Option 2 ID : **4410091270509**
Option 3 ID : **4410091270510**
Option 4 ID : **4410091270508**

Q.3 तद्भव शब्द का चयन करें-

Ans
✗ 1. यदा
✓ 2. चना
✗ 3. चूर्ण
✗ 4. जटा

Question ID : **441009309012**
Option 1 ID : **4410091202701**
Option 2 ID : **4410091202703**
Option 3 ID : **4410091202700**
Option 4 ID : **4410091202702**

Q.4 'चारपाई से लगना' मुहावरे का अर्थ क्या है?

Ans
✗ 1. मजा किरकिरा होना
✗ 2. निष्कलंक होना
✓ 3. बीमारी से उठ ना पाना
✗ 4. असंभव को संभव करना

Question ID : **441009311725**
Option 1 ID : **4410091213321**
Option 2 ID : **4410091213318**
Option 3 ID : **4410091213320**
Option 4 ID : **4410091213319**

Q.5 'अनुसंधित्सा' शब्द के लिए उपयुक्त वाक्यांश निम्नलिखित में से चुनिए -

Ans
✗ 1. चोट खाया हुआ
✓ 2. अनुसंधान की इच्छा
✗ 3. राजा का बगीचा
✗ 4. आम का बगीचा

Question ID : **441009841797**
Option 1 ID : **4410093320259**
Option 2 ID : **4410093320256**
Option 3 ID : **4410093320257**
Option 4 ID : **4410093320258**

QuickSarkari.com | WhatsApp Channel | Telegram: t.me/quick_sarkari

Q.6 उपयुक्त रीतिवाचक क्रिया-विशेषण से वाक्य को पूर्ण कीजिए।
अंकिता ..... पढ़ती है।

Ans
✔ 1. ज़ोर-से
✘ 2. मीठा
✘ 3. आज
✘ 4. उधर

Question ID : **441009323485**
Option 1 ID : **4410091260123**
Option 2 ID : **4410091260122**
Option 3 ID : **4410091260125**
Option 4 ID : **4410091260124**

Q.7 नीचे दिए गए वाक्य के किस भाग में त्रुटि है ?
'यहाँ कर्त्रिवाच्य कृदंत क्रिया है।'

Ans
✔ 1. कर्त्रिवाच्य
✘ 2. कृदंत
✘ 3. क्रिया है
✘ 4. यहाँ

Question ID : **441009327519**
Option 1 ID : **4410091276427**
Option 2 ID : **4410091276428**
Option 3 ID : **4410091276429**
Option 4 ID : **4410091276426**

Q.8 सही 'क्रिया' का चयन कर दिए गए वाक्य को पूर्ण कीजिए-
' नाव जल पर ..... है।'

Ans
✔ 1. तैरती
✘ 2. डूबती
✘ 3. नाचती
✘ 4. खेलती

Question ID : **441009325031**
Option 1 ID : **4410091266407**
Option 2 ID : **4410091266406**
Option 3 ID : **4410091266408**
Option 4 ID : **4410091266409**

Q.9 दिए गए वाक्यों में से सही वाक्य क्रम का चयन कीजिए।

Ans
✘ 1. सूफियों ने प्रेम की प्रतिष्ठा पारलौकिक की।
✔ 2. सूफियों ने पारलौकिक प्रेम की प्रतिष्ठा की।
✘ 3. प्रेम की प्रतिष्ठा पारलौकिक की सूफियों ने।
✘ 4. प्रेम सूफियों ने पारलौकिक की प्रतिष्ठा की।

Question ID : **441009324002**
Option 1 ID : **4410091262222**
Option 2 ID : **4410091262221**
Option 3 ID : **4410091262223**
Option 4 ID : **4410091262220**

QuickSarkari.com | WhatsApp Channel | Telegram: t.me/quick_sarkari

Q.10 'उपरि' के उचित विलोम का चयन करें -

Ans
✗ 1. अस्त
✗ 2. अनुद्यत
✗ 3. तल
✓ 4. नीचे

Question ID : **441009308926**
Option 1 ID : **4410091202356**
Option 2 ID : **4410091202357**
Option 3 ID : **4410091202359**
Option 4 ID : **4410091202358**

Q.11 'असभ्य' के उचित पर्यायवाची शब्द का चयन करें -

Ans
✗ 1. अवशिष्ट
✓ 2. अभद्र
✗ 3. अवज्ञा
✗ 4. आक्षेप

Question ID : **441009308965**
Option 1 ID : **4410091202514**
Option 2 ID : **4410091202512**
Option 3 ID : **4410091202513**
Option 4 ID : **4410091202515**

Q.12 **'लोगों में परम्परा से चली आ रही कथा' वाक्यांश के लिए सही अर्थ वाला विकल्प है-**

Ans
✗ 1. किंवदंती
✗ 2. कलाकृति
✓ 3. दंतकथा
✗ 4. सर्वव्यापक

Question ID : **441009841799**
Option 1 ID : **4410093320267**
Option 2 ID : **4410093320264**
Option 3 ID : **4410093320266**
Option 4 ID : **4410093320265**

Q.13 सही 'कारक' चिह्न का चयन कर दिए गए वाक्य को पूर्ण कीजिए-
'रिजवान .....ही मिठाई खायी थी।'

Ans
✓ 1. ने
✗ 2. पर
✗ 3. से
✗ 4. को

Question ID : **441009324951**
Option 1 ID : **4410091266068**
Option 2 ID : **4410091266070**
Option 3 ID : **4410091266069**
Option 4 ID : **4410091266067**

QuickSarkari.com | WhatsApp Channel | Telegram: t.me/quick_sarkari

Q.14 'म्याऊँ की ठौर को कौन पकड़े' लोकोक्ति का अर्थ क्या है?

Ans

✗ 1. एक से बढ़कर दूसरा चालाक।

✗ 2. सांसारिक अनुभव बहुत है।

✗ 3. अपने को अमीर समझते हैं।

✓ 4. कठिन काम में कोई हाथ नहीं बँटाता।

Question ID : **441009311753**
Option 1 ID : **4410091213436**
Option 2 ID : **4410091213435**
Option 3 ID : **4410091213434**
Option 4 ID : **4410091213437**

Q.15 निम्नलिखित विकल्पों में वर्तनी संबंधी त्रुटियाँ पहचानकर वाक्य के शुद्ध रूप का चयन करें।

Ans

✓ 1. विश्व उद्योगीकरण की ओर अग्रसर हो रहा है।

✗ 2. विश्व औद्योगिकीकरण की ओर अग्रसर हो रहा है।

✗ 3. विश्व उद्योगिकीकरण की ओर अग्रसर हो रहा है।

✗ 4. विश्व औद्योगिकिकरण की ओर अग्रसर हो रहा है।

Question ID : **441009329817**
Option 1 ID : **4410091285699**
Option 2 ID : **4410091285698**
Option 3 ID : **4410091285700**
Option 4 ID : **4410091285701**

Comprehension:

नीचे दिए गद्यांश को पढ़कर पूछे गए प्रश्नों के उत्तर दें-
अट्ठारहवीं शताब्दी में पहली बार यूरोप के लोगों ने यह सोचना शुरू किया कि पर्वत बहुत सुंदर होते हैं। इससे पहले मैदान के निवासियों, विशेषकर शहरी लोगों में भय उत्पन्न हुआ था। उनके लिए पर्वत जंगली व खतरनाक स्थान थे जिनमें व्यक्ति खो जाता था, भयंकर जानवरों द्वारा मार दिया जाता था। नगरवासियों ने अपने शहर में मनुष्य की प्रकृति पर विजय देखी तथा जो जंगली क्रूर , अव्यवस्थित और भद्दा था उसपर सभ्यता,व्यवस्था,शांति और सौन्दर्य का आधिपत्य देखा।
हालांकि, बहुत से लोग जो शहरी सभ्यता में सुविधापूर्वक रह रहे थे, इससे ऊबने लगे। मनुष्य में बहुत सी मूल प्रवृत्तियाँ होती हैं, उनमें से कुछ परस्पर संघर्षरत रहती हैं । इनमे से एक मूल प्रवृत्ति है अज्ञात की खोज करना। यह प्रवृत्ति उस जीवन में संतुष्ट नहीं होती है जिसमें सभी कुछ व्यवस्थित,शांतिपूर्ण व सहजग्राह्य है। यह प्रवृत्ति रहस्य को देखती है, यह उन वस्तुओं को देखती है जिनकी व्याख्या नहीं की जा सकती है, यह उन दृश्यों व ध्वनियों को देखती है जो व्यक्ति में भय का रोमांच या एहसास उत्पन्न करते हैं। इसलिए अठारहवीं शताब्दी में लोग मानव निर्मित नगरों से अछूते देश या स्थान की ओर अग्रसर होने लगे। इन अछूते स्थानों में विशेषकर वे स्थान थे जो खतरनाक ऊबड़-खाबड़ व अव्यवस्थित थे। जंगली चट्टानों व ऊंचे पर्वतों ने कविताओं व उपन्यासों में स्थान लेना शुरू कर दिया और उत्तर पश्चिमी इंग्लैंड में लेक शहर अपने पर्वतों व झीलों के साथ अवकाश व्यतीत करने का लोकप्रिय स्थान हो गया।

SubQuestion No : 16

Q.16 गद्यांश में आए 'आधिपत्य' शब्द के अर्थ का चयन करें।

Ans

✓ 1. प्रभुत्व

✗ 2. जिम्मेदार

✗ 3. अधिकाधिक

✗ 4. अधिक

Question ID : **441009325664**
Option 1 ID : **4410091268955**
Option 2 ID : **4410091268957**
Option 3 ID : **4410091268958**
Option 4 ID : **4410091268956**

Comprehension:

नीचे दिए गद्यांश को पढ़कर पूछे गए प्रश्नों के उत्तर दें-
अट्ठारहवीं शताब्दी में पहली बार यूरोप के लोगों ने यह सोचना शुरू किया कि पर्वत बहुत सुंदर होते हैं। इससे पहले मैदान के निवासियों, विशेषकर शहरी लोगों में भय उत्पन्न हुआ था। उनके लिए पर्वत जंगली व खतरनाक स्थान थे जिनमें व्यक्ति खो जाता था, भयंकर जानवरों द्वारा मार दिया जाता था। नगरवासियों ने अपने शहर में मनुष्य की प्रकृति पर विजय देखी तथा जो जंगली क्रूर , अव्यवस्थित और भद्दा था उसपर सभ्यता,व्यवस्था,शांति और सौन्दर्य का आधिपत्य देखा।
हालांकि, बहुत से लोग जो शहरी सभ्यता में सुविधापूर्वक रह रहे थे, इससे ऊबने लगे। मनुष्य में बहुत सी मूल प्रवृत्तियाँ होती हैं, उनमें से कुछ परस्पर संघर्षरत रहती हैं । इनमे से एक मूल प्रवृत्ति है अज्ञात की खोज करना। यह प्रवृत्ति उस जीवन में संतुष्ट नहीं होती है जिसमें सभी कुछ व्यवस्थित,शांतिपूर्ण व सहजग्राह्य है। यह प्रवृत्ति रहस्य को देखती है, यह उन वस्तुओं को देखती है जिनकी व्याख्या नहीं की जा सकती है, यह उन दृश्यों व ध्वनियों को देखती है जो व्यक्ति में भय का रोमांच या एहसास उत्पन्न करते हैं। इसलिए अठारहवीं शताब्दी में लोग मानव निर्मित नगरों से अछूते देश या स्थान की ओर अग्रसर होने लगे। इन अछूते स्थानों में विशेषकर वे स्थान थे जो खतरनाक ऊबड़-खाबड़ व अव्यवस्थित थे। जंगली चट्टानों व ऊंचे पर्वतों ने कविताओं व उपन्यासों में स्थान लेना शुरू कर दिया और उत्तर पश्चिमी इंग्लैंड में लेक शहर अपने पर्वतों व झीलों के साथ अवकाश व्यतीत करने का लोकप्रिय स्थान हो गया।

SubQuestion No : 17

Q.17 गद्यांश में आए 'प्रवृत्ति' शब्द के पर्यायवाची का चयन करें।

Ans
✗ 1. इच्छा
✗ 2. व्यवहार
✓ 3. रुझान
✗ 4. आकर्षण

Question ID : **441009325665**
Option 1 ID : **4410091268959**
Option 2 ID : **4410091268962**
Option 3 ID : **4410091268961**
Option 4 ID : **4410091268960**

Comprehension:

नीचे दिए गद्यांश को पढ़कर पूछे गए प्रश्नों के उत्तर दें-
अट्ठारहवीं शताब्दी में पहली बार यूरोप के लोगों ने यह सोचना शुरू किया कि पर्वत बहुत सुंदर होते हैं। इससे पहले मैदान के निवासियों, विशेषकर शहरी लोगों में भय उत्पन्न हुआ था। उनके लिए पर्वत जंगली व खतरनाक स्थान थे जिनमें व्यक्ति खो जाता था, भयंकर जानवरों द्वारा मार दिया जाता था। नगरवासियों ने अपने शहर में मनुष्य की प्रकृति पर विजय देखी तथा जो जंगली क्रूर , अव्यवस्थित और भद्दा था उसपर सभ्यता,व्यवस्था,शांति और सौन्दर्य का आधिपत्य देखा।
हालांकि, बहुत से लोग जो शहरी सभ्यता में सुविधापूर्वक रह रहे थे, इससे ऊबने लगे। मनुष्य में बहुत सी मूल प्रवृत्तियाँ होती हैं, उनमें से कुछ परस्पर संघर्षरत रहती हैं । इनमे से एक मूल प्रवृत्ति है अज्ञात की खोज करना। यह प्रवृत्ति उस जीवन में संतुष्ट नहीं होती है जिसमें सभी कुछ व्यवस्थित,शांतिपूर्ण व सहजग्राह्य है। यह प्रवृत्ति रहस्य को देखती है, यह उन वस्तुओं को देखती है जिनकी व्याख्या नहीं की जा सकती है, यह उन दृश्यों व ध्वनियों को देखती है जो व्यक्ति में भय का रोमांच या एहसास उत्पन्न करते हैं। इसलिए अठारहवीं शताब्दी में लोग मानव निर्मित नगरों से अछूते देश या स्थान की ओर अग्रसर होने लगे। इन अछूते स्थानों में विशेषकर वे स्थान थे जो खतरनाक ऊबड़-खाबड़ व अव्यवस्थित थे। जंगली चट्टानों व ऊंचे पर्वतों ने कविताओं व उपन्यासों में स्थान लेना शुरू कर दिया और उत्तर पश्चिमी इंग्लैंड में लेक शहर अपने पर्वतों व झीलों के साथ अवकाश व्यतीत करने का लोकप्रिय स्थान हो गया।

SubQuestion No : 18

Q.18 गद्यांश में आए 'क्रूर' शब्द का विलोम शब्द क्या होगा?

Ans
✗ 1. निष्ठुर
✓ 2. दयालु
✗ 3. संवेदन
✗ 4. अहिंसक

Question ID : **441009325666**
Option 1 ID : **4410091268966**
Option 2 ID : **4410091268964**
Option 3 ID : **4410091268965**
Option 4 ID : **4410091268963**

Comprehension:

नीचे दिए गद्यांश को पढ़कर पूछे गए प्रश्नों के उत्तर दें-
अट्ठारहवीं शताब्दी में पहली बार यूरोप के लोगों ने यह सोचना शुरू किया कि पर्वत बहुत सुंदर होते हैं। इससे पहले मैदान के निवासियों, विशेषकर शहरी लोगों में भय उत्पन्न हुआ था। उनके लिए पर्वत जंगली व खतरनाक स्थान थे जिनमें व्यक्ति खो जाता था, भयंकर जानवरों द्वारा मार दिया जाता था। नगरवासियों ने अपने शहर में मनुष्य की प्रकृति पर विजय देखी तथा जो जंगली क्रूर , अव्यवस्थित और भद्दा था उसपर सभ्यता,व्यवस्था,शांति और सौन्दर्य का आधिपत्य देखा।
हालांकि, बहुत से लोग जो शहरी सभ्यता में सुविधापूर्वक रह रहे थे, इससे ऊबने लगे। मनुष्य में बहुत सी मूल प्रवृत्तियाँ होती हैं, उनमें से कुछ परस्पर संघर्षरत रहती हैं । इनमे से एक मूल प्रवृत्ति है अज्ञात की खोज करना। यह प्रवृत्ति उस जीवन में संतुष्ट नहीं होती है जिसमें सभी कुछ व्यवस्थित,शांतिपूर्ण व सहजग्राह्य है। यह प्रवृत्ति रहस्य को देखती है, यह उन वस्तुओं को देखती है जिनकी व्याख्या नहीं की जा सकती है, यह उन दृश्यों व ध्वनियों को देखती है जो व्यक्ति में भय का रोमांच या एहसास उत्पन्न करते हैं। इसलिए अठारहवीं शताब्दी में लोग मानव निर्मित नगरों से अछूते देश या स्थान की ओर अग्रसर होने लगे। इन अछूते स्थानों में विशेषकर वे स्थान थे जो खतरनाक ऊबड़-खाबड़ व अव्यवस्थित थे। जंगली चट्टानों व ऊंचे पर्वतों ने कविताओं व उपन्यासों में स्थान लेना शुरू कर दिया और उत्तर पश्चिमी इंग्लैंड में लेक शहर अपने पर्वतों व झीलों के साथ अवकाश व्यतीत करने का लोकप्रिय स्थान हो गया।

SubQuestion No : 19

Q.19 गद्यांश में 'प्रसिद्ध' के लिए किस अन्य शब्द का प्रयोग हुआ है?

Ans
✗ 1. अग्रसर
✓ 2. लोकप्रिय
✗ 3. सहजग्राह्य
✗ 4. सौन्दर्य

Question ID : **441009325667**
Option 1 ID : **4410091268969**
Option 2 ID : **4410091268967**
Option 3 ID : **4410091268970**
Option 4 ID : **4410091268968**

Comprehension:

नीचे दिए गद्यांश को पढ़कर पूछे गए प्रश्नों के उत्तर दें-
अट्ठारहवीं शताब्दी में पहली बार यूरोप के लोगों ने यह सोचना शुरू किया कि पर्वत बहुत सुंदर होते हैं। इससे पहले मैदान के निवासियों, विशेषकर शहरी लोगों में भय उत्पन्न हुआ था। उनके लिए पर्वत जंगली व खतरनाक स्थान थे जिनमें व्यक्ति खो जाता था, भयंकर जानवरों द्वारा मार दिया जाता था। नगरवासियों ने अपने शहर में मनुष्य की प्रकृति पर विजय देखी तथा जो जंगली क्रूर , अव्यवस्थित और भद्दा था उसपर सभ्यता,व्यवस्था,शांति और सौन्दर्य का आधिपत्य देखा।
हालांकि, बहुत से लोग जो शहरी सभ्यता में सुविधापूर्वक रह रहे थे, इससे ऊबने लगे। मनुष्य में बहुत सी मूल प्रवृत्तियाँ होती हैं, उनमें से कुछ परस्पर संघर्षरत रहती हैं । इनमे से एक मूल प्रवृत्ति है अज्ञात की खोज करना। यह प्रवृत्ति उस जीवन में संतुष्ट नहीं होती है जिसमें सभी कुछ व्यवस्थित,शांतिपूर्ण व सहजग्राह्य है। यह प्रवृत्ति रहस्य को देखती है, यह उन वस्तुओं को देखती है जिनकी व्याख्या नहीं की जा सकती है, यह उन दृश्यों व ध्वनियों को देखती है जो व्यक्ति में भय का रोमांच या एहसास उत्पन्न करते हैं। इसलिए अठारहवीं शताब्दी में लोग मानव निर्मित नगरों से अछूते देश या स्थान की ओर अग्रसर होने लगे। इन अछूते स्थानों में विशेषकर वे स्थान थे जो खतरनाक ऊबड़-खाबड़ व अव्यवस्थित थे। जंगली चट्टानों व ऊंचे पर्वतों ने कविताओं व उपन्यासों में स्थान लेना शुरू कर दिया और उत्तर पश्चिमी इंग्लैंड में लेक शहर अपने पर्वतों व झीलों के साथ अवकाश व्यतीत करने का लोकप्रिय स्थान हो गया।

SubQuestion No : 20

Q.20 दिए हुए गद्यांश के लिए उचित शीर्षक चुनिए।

Ans
✗ 1. मनुष्य और प्रकृति
✗ 2. सभ्यता और संस्कृति
✗ 3. यूरोप और जंगल
✓ 4. यूरोप और पर्वत

Question ID : **441009325668**
Option 1 ID : **4410091268973**
Option 2 ID : **4410091268974**
Option 3 ID : **4410091268971**
Option 4 ID : **4410091268972**

Section : **Discipline1**

Q.1 Why is a socially disadvantaged child called a deprived child?

Ans
✔ 1. Because they lack love, proper guidance and general social security
✘ 2. Because they do not behave in a socially acceptable form
✘ 3. Because they frequently commit crime
✘ 4. Because they indulge in anti-social activities

Question ID : **441009984789**
Option 1 ID : **4410093891584**
Option 2 ID : **4410093891585**
Option 3 ID : **4410093891583**
Option 4 ID : **4410093891582**

Q.2 Arrange the following activities in the correct chronological order to develop counting skills in young children.

a. Counting fingers and toes
b. Counting blocks
c. Counting groups of objects
d. Counting numbers in books

Ans
✔ 1. a, b, c, d
✘ 2. c, d, b, a
✘ 3. b, c, d, a
✘ 4. a, d, b, c

Question ID : **441009984096**
Option 1 ID : **4410093888816**
Option 2 ID : **4410093888817**
Option 3 ID : **4410093888815**
Option 4 ID : **4410093888814**

Q.3 Identify the age during which children learn at an elementary school.

Ans
✘ 1. Ages 14 to 16
✘ 2. Ages 2 to 3
✔ 3. Ages 5 to 12
✘ 4. Ages 3 to 6

Question ID : **441009984284**
Option 1 ID : **4410093889565**
Option 2 ID : **4410093889562**
Option 3 ID : **4410093889564**
Option 4 ID : **4410093889563**

QuickSarkari.com | WhatsApp Channel | Telegram: t.me/quick_sarkari

Q.4 Which activity best promotes parent-teacher collaboration in a preschool setting?

Ans

✗ 1. Avoiding parent participation in classroom events

✓ 2. Organising regular parent-teacher meetings and workshops

✗ 3. Sending only written progress reports

✗ 4. Asking parents not to interfere in school matters

Question ID : **4410091044617**
Option 1 ID : **4410094127493**
Option 2 ID : **4410094127491**
Option 3 ID : **4410094127490**
Option 4 ID : **4410094127492**

Q.5 Incremental vocabulary development is characterised by _____.

Ans

✗ 1. learning new words only through formal education

✗ 2. rapid acquisition of a large number of words in a short time

✗ 3. focusing on the pronunciation of words rather than their meanings

✓ 4. gradual and continuous learning of words through diverse experiences

Question ID : **441009984011**
Option 1 ID : **4410093888476**
Option 2 ID : **4410093888474**
Option 3 ID : **4410093888477**
Option 4 ID : **4410093888475**

Q.6 Cognitive growth is supported by sensory play, which enhances thought process, understanding and reasoning. _____ new materials also makes understanding of new concepts easier.

Ans

✗ 1. Teacher talking about

✗ 2. Looking at

✓ 3. Manipulating

✗ 4. Teacher showing

Question ID : **441009984624**
Option 1 ID : **4410093890924**
Option 2 ID : **4410093890923**
Option 3 ID : **4410093890922**
Option 4 ID : **4410093890925**

QuickSarkari.com | WhatsApp Channel | Telegram: t.me/quick_sarkari

Q.7 Which of the following statements are correct?

1.Growth refers to quantitative and qualitative changes.
2. Rate of growth is continuous throughout life.
3.The sequence, pattern and direction of growth are common in all children.
4. The rate of growth varies from child to child.

Ans
✗ 1. 2 and 3 only
✗ 2. 1 and 2 only
✗ 3. 1 and 4 only
✓ 4. 3 and 4 only

Question ID : **441009984479**
Option 1 ID : **4410093890343**
Option 2 ID : **4410093890345**
Option 3 ID : **4410093890342**
Option 4 ID : **4410093890344**

Q.8 Which of the following is NOT a characteristic of good teaching?

Ans
✗ 1. Planned and purposeful
✗ 2. Based on learner needs
✗ 3. Flexible and dynamic
✓ 4. Rigid and authoritarian

Question ID : **4410091083439**
Option 1 ID : **4410094270835**
Option 2 ID : **4410094270837**
Option 3 ID : **4410094270836**
Option 4 ID : **4410094270838**

Q.9 Which of the following statements is/are correct about the 'role of materials' in child's play?

a) To provide meaningful stimulation that supports exploration, creativity, and learning
b) To serve as a source of entertainment

Ans
✗ 1. Only b
✗ 2. Both a and b
✗ 3. Neither a nor b
✓ 4. Only a

Question ID : **441009984276**
Option 1 ID : **4410093889533**
Option 2 ID : **4410093889530**
Option 3 ID : **4410093889531**
Option 4 ID : **4410093889532**

QuickSarkari.com | WhatsApp Channel | Telegram: t.me/quick_sarkari

Q.10 Match the following stages of reading phases to their descriptions.

Phases Descriptions
1) Pre-Alphabetic a) Can fully analyse the spellings of words and understand letter-sound relationships
2) Partial Alphabetic b) Combine spelling patterns into 'multi-letter units' and use these to read sight words
3) Full Alphabetic c) Attend to distinctive visual cues such as logos and symbols
4) Consolidated Alphabetic d) Knowing some letters and sounds and using those phonetic clues while reading

Ans
✔ 1. 1-c, 2-d, 3-a, 4-b
✘ 2. 1-d, 2-c, 3-b, 4-a
✘ 3. 1-b, 2-a, 3-d, 4-c
✘ 4. 1-c, 2-a, 3-d, 4-b

Question ID : **441009984035**
Option 1 ID : **4410093888570**
Option 2 ID : **4410093888571**
Option 3 ID : **4410093888572**
Option 4 ID : **4410093888573**

Q.11 The short-term and long-term risks seen in children due to their exposure to early formal education are _____ and _____, respectively.

Ans
✘ 1. irritability; helplessness
✘ 2. indifference; hatred towards learning
✘ 3. low grasping ability; moderate intelligence
✔ 4. stress; low intellectual development

Question ID : **441009984703**
Option 1 ID : **4410093891241**
Option 2 ID : **4410093891239**
Option 3 ID : **4410093891240**
Option 4 ID : **4410093891238**

Q.12 Which of the following classroom activities gives more scope for expression for Culturally-Linguistically diverse students?

Ans
✘ 1. Writing worksheet
✔ 2. Drawing and colouring
✘ 3. Group song
✘ 4. Reading a poem

Question ID : **441009984413**
Option 1 ID : **4410093890078**
Option 2 ID : **4410093890080**
Option 3 ID : **4410093890081**
Option 4 ID : **4410093890079**

QuickSarkari.com | WhatsApp Channel | Telegram: t.me/quick_sarkari

Q.13 When observing gross motor development, which setting is preferable?

Ans
✗ 1. Dramatic play corner
✗ 2. Indoor classroom activities
✗ 3. Storytelling sessions
✓ 4. Outdoor play

Question ID : **441009983806**
Option 1 ID : **4410093887657**
Option 2 ID : **4410093887654**
Option 3 ID : **4410093887655**
Option 4 ID : **4410093887656**

Q.14 The medium of interaction in the ECCE centre should be home language or mother tongue. However, there may be more than one language as mother tongue, which may pose problems for children coming from different language backgrounds and dialects. It is therefore important to allow as many languages as are in the classroom to be used for expression.

Identify the concept behind this paragraph, which the educators are trying to convey.

Ans
✓ 1. Multilingualism
✗ 2. Curricular issues
✗ 3. Multi-age grouping
✗ 4. Gender equality

Question ID : **441009984331**
Option 1 ID : **4410093889753**
Option 2 ID : **4410093889752**
Option 3 ID : **4410093889751**
Option 4 ID : **4410093889750**

Q.15 पाठ्यचर्या विकास के संदर्भ में, आवश्यकताओं के आकलन का प्राथमिक प्रयोजन क्या है?

Ans
✗ 1. पाठ्यचर्या के लिए पाठ्यपुस्तकों का चयन करना
✓ 2. यह निर्धारित करना कि किसी निश्चित जनसंख्या के लिए पाठ्यचर्या कैसी होनी चाहिए
✗ 3. नई पाठ्यचर्या को तुरंत लागू करना
✗ 4. शिक्षकों के निष्पादन का मूल्यांकन करना

Question ID : **441009983675**
Option 1 ID : **4410093887133**
Option 2 ID : **4410093887132**
Option 3 ID : **4410093887130**
Option 4 ID : **4410093887131**

Q.16 As per ECCE, children with disabilities and impairments must be given priority, and this gave rise to Inclusive education. The major disabilities and impairments are :Learning disability, Mental and Psychological disorders, Chronic Medical condition and:

Ans
✗ 1. Nutritional disorder
✓ 2. Sensory impairment
✗ 3. Societal issues
✗ 4. Maladaptive mindset

Question ID : **441009984616**
Option 1 ID : **4410093890891**
Option 2 ID : **4410093890890**
Option 3 ID : **4410093890892**
Option 4 ID : **4410093890893**

Q.17 यदि कोई बच्चा गिर जाए और फ्रैक्चर/मोच आ जाए तो नीचे दिए गए प्राथमिक उपचार के चरणों का सही क्रम क्या है?

1. बर्फ या शीत संपीड को पतले कपड़े में लपेटकर 20 मिनट से अधिक समय तक न लगाएं।
2. किसी बाल रोग विशेषज्ञ को बुलाइए या आपातकाल देखभाल लीजिए।
3. यदि चोट वाले स्थान में वेदना हो, सूजन हो या वह विकृत हो, या गति करने से वेदना हो, तो उस स्थान को तौलिए या मुलायम कपड़े से लपेट लीजिए।
4. हाथ या पैर को अपने स्थान पर बनाए रखने के लिए कार्डबोर्ड या किसी अन्य मजबूत सामग्री से स्प्लिंट बनाइए।
5. अंग को सीधा करने का प्रयास न कीजिए।

Ans
✗ 1. 1, 2, 3, 4, 5
✗ 2. 3, 2, 1, 5, 4
✓ 3. 3, 4, 5, 1, 2
✗ 4. 4, 3, 5, 1, 2

Question ID : **441009984203**
Option 1 ID : **4410093889242**
Option 2 ID : **4410093889243**
Option 3 ID : **4410093889245**
Option 4 ID : **4410093889244**

Q.18 Most languages consist of sound segments with a range of:

Ans
✗ 1. 50-100 distinct phonemes
✓ 2. 20-60 distinct phonemes
✗ 3. 10-50 distinct phonemes
✗ 4. 25-80 distinct phonemes

Question ID : **441009984005**
Option 1 ID : **4410093888452**
Option 2 ID : **4410093888453**
Option 3 ID : **4410093888450**
Option 4 ID : **4410093888451**

QuickSarkari.com | WhatsApp Channel | Telegram: t.me/quick_sarkari

Q.19 The Sustainable Development Goals (SDGs), adopted by the Government of India, has earmarked, as priority, 17 Goals for the welfare of the country.
Identify the third and fourth Goals, respectively, that concern the welfare of children.

[A] Good health and well-being
[B] Quality education
[C] Peace, justice and strong institutions
[D] Affordable and clean energy

Ans
✗ 1. B and D
✓ 2. A and B
✗ 3. B and C
✗ 4. A and C

Question ID : **441009984696**
Option 1 ID : **4410093891211**
Option 2 ID : **4410093891210**
Option 3 ID : **4410093891212**
Option 4 ID : **4410093891213**

Q.20 What does a well-designed ECCE programme ensure for every child?

Ans
✗ 1. Limited opportunities for exploration
✓ 2. A stress-free, stimulating and enabling learning environment
✗ 3. Uniform learning pace for all children
✗ 4. Exclusive focus on cognitive development

Question ID : **441009983578**
Option 1 ID : **4410093886742**
Option 2 ID : **4410093886744**
Option 3 ID : **4410093886743**
Option 4 ID : **4410093886745**

Section : **Discipline2**

Q.1 Which activity can best help a nursery teacher manage stress and support self-development?

Ans
✗ 1. Avoiding all interactions with colleagues
✗ 2. Ignoring personal well-being
✓ 3. Regular practice of meditation or yoga
✗ 4. Skipping meals to save time

Question ID : **4410091041318**
Option 1 ID : **4410094114405**
Option 2 ID : **4410094114402**
Option 3 ID : **4410094114403**
Option 4 ID : **4410094114404**

QuickSarkari.com | WhatsApp Channel | Telegram: t.me/quick_sarkari

Q.2 What is the importance of risk taking in outdoor learning?

Ans
✗ 1. It helps develop physical skills.

✗ 2. It helps develop cognitive skills.

✗ 3. It helps develop social skills.

✓ 4. It helps develop resilience and confidence.

Question ID : **441009984296**
Option 1 ID : **4410093889610**
Option 2 ID : **4410093889611**
Option 3 ID : **4410093889612**
Option 4 ID : **4410093889613**

Q.3 Which of the following is true regarding best practices for phonemic awareness instruction?
Statement 1- Clapping hands to show distinct parts of sentences and words.
Statement 2- Sorting pictures for isolating sounds.

Ans
✗ 1. Statement 1 is true and statement 2 is false.

✓ 2. Both the statements are true.

✗ 3. Statement 1 is false and statement 2 is true.

✗ 4. Both the statements are false.

Question ID : **441009983974**
Option 1 ID : **4410093888328**
Option 2 ID : **4410093888327**
Option 3 ID : **4410093888329**
Option 4 ID : **4410093888326**

Q.4 Match the following.

A.	Period of the neonate	1.	Development proceeds from head to toe
B.	Prenatal period	2.	Conception to birth
C.	Biological process	3.	Birth to one month
D.	Cephalocaudal	4.	Changes that are physical in nature

Ans
✗ 1. A: 1, B: 2, C: 3, D: 4

✓ 2. A: 3, B: 2, C: 4, D: 1

✗ 3. A: 2, B: 3, C: 4, D: 1

✗ 4. A: 4, B: 3, C: 2, D: 1

Question ID : **441009984431**
Option 1 ID : **4410093890151**
Option 2 ID : **4410093890153**
Option 3 ID : **4410093890152**
Option 4 ID : **4410093890150**

Q.5 **"I am thinking, and I know that everyone is thinking the same" refers to which of the following?**

Ans
✗ 1. Illogical thinking

✗ 2. Conservation

✓ 3. Egocentrism

✗ 4. Animistic thinking

Question ID : **441009984525**
Option 1 ID : **4410093890527**
Option 2 ID : **4410093890529**
Option 3 ID : **4410093890528**
Option 4 ID : **4410093890526**

Q.6 **Which of the following best describes an effective approach for student-teachers to document child development observations during field practice?**

Ans
✓ 1. Recording specific behaviours using anecdotes and checklists

✗ 2. Relying completely on verbal reports from the class teacher

✗ 3. Giving only positive comments to avoid offering criticism

✗ 4. Sharing personal opinions without using any clear evidence

Question ID : **4410091041303**
Option 1 ID : **4410094114339**
Option 2 ID : **4410094114341**
Option 3 ID : **4410094114340**
Option 4 ID : **4410094114338**

Q.7 **Which of the following points are to be kept in mind while selecting a proper location for an ECCE centre?**
A) Should be easily accessible
B) Have clean surroundings
C) Be safe
D) Can be inside a single room

Ans
✗ 1. Only C and D

✗ 2. Only A and B

✓ 3. A, B and C

✗ 4. Only A and D

Question ID : **441009983701**
Option 1 ID : **4410093887235**
Option 2 ID : **4410093887234**
Option 3 ID : **4410093887237**
Option 4 ID : **4410093887236**

QuickSarkari.com | WhatsApp Channel | Telegram: t.me/quick_sarkari

Q.8 What is the approach adopted by ECCE curriculum?

Ans ✔ 1. Play and activity-based approach

✘ 2. Memorisation and repetition-based approach

✘ 3. Video and observation-based approach

✘ 4. Lecture and reading-based approach

Question ID : **441009983909**
Option 1 ID : **4410093888066**
Option 2 ID : **4410093888069**
Option 3 ID : **4410093888068**
Option 4 ID : **4410093888067**

Q.9 Which of the following is NOT suited to be accepted as the objective of ECCE?

Ans ✘ 1. Ensuring each child is valued, respected, feels safe and secure and develops a positive self concept.

✔ 2. Keeping restrictive environment for children to ensure safety and emotional well-being of children.

✘ 3. Stimulating intellectual curiosity of children by providing opportunities to explore, investigate and experiment.

✘ 4. Enhancing social-skills of children by organising visits outside the school.

Question ID : **441009984334**
Option 1 ID : **4410093889763**
Option 2 ID : **4410093889765**
Option 3 ID : **4410093889762**
Option 4 ID : **4410093889764**

Q.10 The primary focus of a developmentally appropriate curriculum is _____.

Ans ✘ 1. rigid structure

✘ 2. teacher's preference

✘ 3. standardised teaching

✔ 4. child's needs

Question ID : **441009983672**
Option 1 ID : **4410093887118**
Option 2 ID : **4410093887119**
Option 3 ID : **4410093887121**
Option 4 ID : **4410093887120**

Q.11 The Rashtriya Bal Swasthya Karyakram (RBSK), an initiative under the National Health Mission, focusses on defects at birth seen in a child, diseases in children, deficiency diseases in children and _____.

Ans ✘ 1. depression

✔ 2. developmental delays

✘ 3. distress factor

✘ 4. dependency factor

Question ID : **441009984709**
Option 1 ID : **4410093891265**
Option 2 ID : **4410093891262**
Option 3 ID : **4410093891263**
Option 4 ID : **4410093891264**

Q.12 Which of the following is the most effective strategy to foster children's understanding of the concept of zero?

Ans

✗ 1. Extensive practice in counting from 1-10

✗ 2. Memorising the number sequence including zero

✓ 3. Relating zero to real-world situations, such as empty sets or the absence of objects

✗ 4. Introducing zero as the 'nothing' number

Question ID : **441009984112**
Option 1 ID : **4410093888878**
Option 2 ID : **4410093888881**
Option 3 ID : **4410093888880**
Option 4 ID : **4410093888879**

Q.13 Which of the following is the longest cranial nerve?

Ans

✗ 1. Optic nerve

✓ 2. Vagus nerve

✗ 3. Facial nerve

✗ 4. Auditory nerve

Question ID : **441009984586**
Option 1 ID : **4410093890770**
Option 2 ID : **4410093890772**
Option 3 ID : **4410093890773**
Option 4 ID : **4410093890771**

Q.14 Read the given statements and select the correct option.

a. Dusting, cleaning and sterilising equipment should be done regularly to avoid the spread of germs.
b. Toys made of washable materials should be washed and kept clean at all times.
c. Enough storage space is not necessary to facilitate easy access to materials.
d. Labelling is important in storage space.

Ans

✗ 1. a and b are true, but c and d are false.

✗ 2. a, b, c and d are false.

✗ 3. a, b, c and d are true.

✓ 4. a, b and d are true, but c is false.

Question ID : **441009984275**
Option 1 ID : **4410093889527**
Option 2 ID : **4410093889528**
Option 3 ID : **4410093889526**
Option 4 ID : **4410093889529**

QuickSarkari.com | WhatsApp Channel | Telegram: t.me/quick_sarkari

Q.15 Read the given statements about play in early childhood and select the correct option.

1. Play is a waste of time and has no role in learning.
2. Play is an essential part of early childhood education and contributes to cognitive, social and emotional development.

Ans
✗ 1. Both Statements 1 and 2 are correct
✗ 2. Both Statements 1 and 2 are incorrect
✗ 3. Statement 1 is correct; Statement 2 is incorrect
✓ 4. Statement 1 is incorrect; Statement 2 is correct

Question ID : **441009984270**
Option 1 ID : **4410093889509**
Option 2 ID : **4410093889506**
Option 3 ID : **4410093889507**
Option 4 ID : **4410093889508**

Q.16 Which of the following activities promotes number sense development in young children?

a. Comparing quantities of objects
b. Reciting rhymes
c. Reading stories
d. Sorting objects by size and colour

Ans
✗ 1. b and c
✗ 2. a and c
✓ 3. a and d
✗ 4. b and d

Question ID : **441009984073**
Option 1 ID : **4410093888724**
Option 2 ID : **4410093888725**
Option 3 ID : **4410093888723**
Option 4 ID : **4410093888722**

Q.17 निम्नलिखित में से कौन-से कथन, विशेष आवश्यकता वाले बच्चों के लिए समावेशी शिक्षा के लाभों को निरूपित करते हैं?

a. यह सुनिश्चित करें कि बच्चों को नियमित स्कूलों में समान शैक्षिक अवसर प्राप्त हों
b. बच्चों और शिक्षकों को संवेदनशील बनाएं ताकि यह सुनिश्चित हो सके कि कोई भेदभाव न हो
c. कक्षा में बच्चों के लिए उनकी क्षमताओं और रुचियों के अनुसार लक्ष्य निर्धारित करें
d. अन्योन्यक्रिया के अवसर प्रदान करें जो पृथक्कृत सेटिंग्स में संभव होंगे

Ans
✗ 1. a, c और d
✗ 2. केवल a और b
✓ 3. a, b और c
✗ 4. b, c और d

Question ID : **441009984594**
Option 1 ID : **4410093890805**
Option 2 ID : **4410093890802**
Option 3 ID : **4410093890803**
Option 4 ID : **4410093890804**

QuickSarkari.com | WhatsApp Channel | Telegram: t.me/quick_sarkari

Q.18 What is the full form of IEP?

Ans
✗ 1. Innovative Educational Plan
✗ 2. Integrated Educational Plan
✓ 3. Individualised Educational Plan
✗ 4. Institutional Educational Plan

Question ID : **441009984726**
Option 1 ID : **4410093891333**
Option 2 ID : **4410093891331**
Option 3 ID : **4410093891332**
Option 4 ID : **4410093891330**

Q.19 What is the most appropriate way to greet and ask a stranger for directions?

Ans
✗ 1. "Hello, where is the station?"
✗ 2. "Where is the station, please?"
✓ 3. "Hello, can you please tell me where the station is?"
✗ 4. "Tell me where the station is."

Question ID : **441009983994**
Option 1 ID : **4410093888407**
Option 2 ID : **4410093888409**
Option 3 ID : **4410093888406**
Option 4 ID : **4410093888408**

Q.20 Which policy is committed to give top priority to and serve street children, children of migrant labourers, and those suffering from HIV/ AIDS?

Ans
✗ 1. National Policy for Children, 2013
✓ 2. National Plan of Action for Children, 2016
✗ 3. National Health Policy
✗ 4. National Nutrition Mission

Question ID : **441009984631**
Option 1 ID : **4410093890953**
Option 2 ID : **4410093890950**
Option 3 ID : **4410093890952**
Option 4 ID : **4410093890951**

Section : **Discipline3**

QuickSarkari.com | WhatsApp Channel | Telegram: t.me/quick_sarkari

Q.1 **During field observation, why is maintaining a reflective journal important for student-teachers?**

Ans
✗ 1. To track children's attendance

✓ 2. To reflect on daily experiences and learning

✗ 3. To copy notes from other teachers

✗ 4. To record personal shopping lists

Question ID : **4410091039490**
Option 1 ID : **4410094108083**
Option 2 ID : **4410094108082**
Option 3 ID : **4410094108080**
Option 4 ID : **4410094108081**

Q.2 **Identify whether the following statements are true or false.**

Statement (A): Introducing children to the elements of nature can enhance their understanding of the world around them.
Statement (B): Direct experiences with water, air and earth allow children to connect more deeply with these elements.

Ans
✗ 1. A is true but B is false.

✗ 2. A is false but B is true.

✗ 3. Both A and B are false.

✓ 4. Both A and B are true.

Question ID : **441009983839**
Option 1 ID : **4410093887788**
Option 2 ID : **4410093887789**
Option 3 ID : **4410093887786**
Option 4 ID : **4410093887787**

Q.3 **Match the rights of children given in Column I with their significance given in Column II.**

	Rights		Significance
A	Right to survival	W	Freedom from all forms of exploitation and abuse
B	Right to development	X	Freedom of expression, thought and decision making
C	Right to protection	Y	Right to attain his or her full cognitive, social, and physical potential
D	Right to participation	Z	Reaching the highest attainable standard of health

Ans
✗ 1. A - Z, B - Y, C - X, D - W

✗ 2. A - Y, B - Z, C - X, D - W

✗ 3. A - Y, B - W, C - Z, D - X

✓ 4. A - Z, B - Y, C - W, D - X

Question ID : **441009984675**
Option 1 ID : **4410093891128**
Option 2 ID : **4410093891127**
Option 3 ID : **4410093891129**
Option 4 ID : **4410093891126**

QuickSarkari.com | WhatsApp Channel | Telegram: t.me/quick_sarkari

Q.4 **Providing safe and secure space in schools caters to _____ of children.**

Ans
✗ 1. only the emotional development

✗ 2. the physical development

✗ 3. the language development

✓ 4. the social and emotional development

Question ID : **441009984281**
Option 1 ID : **4410093889551**
Option 2 ID : **4410093889550**
Option 3 ID : **4410093889553**
Option 4 ID : **4410093889552**

Q.5 **Match the characteristics of First Aider in Column A with the corresponding descriptions in Column B.**

Column A: Characteristics
1. Observant
2. Resourceful
3. Tactful
4. Dexterous

Column B: Descriptions
a. Able to handle a casualty without causing unnecessary pain and use appliances efficiently
b. Able to learn symptoms and history without asking thoughtless questions, securing confidence
c. Observe the situation and details
d. Able to use whatever is at hand to prevent further damage

Ans
✗ 1. 1-d, 2-c, 3-b, 4-a

✓ 2. 1-c, 2-d, 3-b, 4-a

✗ 3. 1-b, 2-a, 3-d, 4-c

✗ 4. 1-a, 2-b, 3-c, 4-d

Question ID : **441009984200**
Option 1 ID : **4410093889233**
Option 2 ID : **4410093889232**
Option 3 ID : **4410093889231**
Option 4 ID : **4410093889230**

Q.6 **According to Lev Vygotsky, which concept explains how children learn best when given support slightly beyond their current ability?**

Ans
✗ 1. Operant conditioning

✗ 2. Fixed intelligence quotient

✗ 3. Classical conditioning

✓ 4. Zone of proximal development

Question ID : **4410091037446**
Option 1 ID : **4410094100354**
Option 2 ID : **4410094100357**
Option 3 ID : **4410094100356**
Option 4 ID : **4410094100355**

QuickSarkari.com | WhatsApp Channel | Telegram: t.me/quick_sarkari

Q.7 Which of the following skills are appropriate for children to acquire at the pre-primary stage?

Ans
✔ 1. Making simple comparisons and identifying shapes

✘ 2. Extensive reading and writing in any two languages

✘ 3. Advanced algebraic and geometric skills

✘ 4. The ability to conduct lab experiments

Question ID : **441009983646**
Option 1 ID : **4410093887015**
Option 2 ID : **4410093887016**
Option 3 ID : **4410093887014**
Option 4 ID : **4410093887017**

Q.8 Which of the following practices best reflects effective community involvement in early childhood education?

Ans
✘ 1. Relying solely on textbooks for cultural education

✘ 2. Inviting community members only for annual day functions

✘ 3. Limiting communication between school and local organisations

✔ 4. Using community resources to enhance learning and promote cultural awareness

Question ID : **4410091044623**
Option 1 ID : **4410094127525**
Option 2 ID : **4410094127523**
Option 3 ID : **4410094127524**
Option 4 ID : **4410094127522**

Q.9 Select the INCORRECT statement.

Ans
✘ 1. Right to development is Right to receive education, support and care during early childhood.

✔ 2. Right to survival, protection, development and formal education are the core Rights of children.

✘ 3. Right to protection includes freedom from all forms of exploitation.

✘ 4. Right to survival includes Right to life and best attainable standard of health.

Question ID : **441009984649**
Option 1 ID : **4410093891025**
Option 2 ID : **4410093891022**
Option 3 ID : **4410093891024**
Option 4 ID : **4410093891023**

QuickSarkari.com | WhatsApp Channel | Telegram: t.me/quick_sarkari

Q.10 Match the following.

A.	Seriation	1.	Back and forth movements between states of equilibrium and disequilibrium
B.	Reflex actions	2.	Ability to order objects along a quantitative dimension.
C.	Organisation	3.	Sucking and grasping
D.	Equilibration	4.	Grouping and reorganising information

Ans

✗ 1. A: 4, B: 3, C:2, D: 1

✗ 2. A: 1, B: 2, C:3, D: 4

✗ 3. A: 3, B: 2, C:4, D: 1

✓ 4. A: 2, B: 3, C:4, D: 1

Question ID : **441009984430**
Option 1 ID : **4410093890146**
Option 2 ID : **4410093890147**
Option 3 ID : **4410093890149**
Option 4 ID : **4410093890148**

Q.11 What type of materials are needed for vertically organised classrooms?

Ans

✗ 1. Uniform textbooks for all grade levels

✗ 2. Extra homework assignments

✗ 3. Single-grade textbooks only

✓ 4. Thematic lessons and graded self-access materials

Question ID : **441009983643**
Option 1 ID : **4410093887002**
Option 2 ID : **4410093887005**
Option 3 ID : **4410093887004**
Option 4 ID : **4410093887003**

Q.12 The attention span of young children is _____ minutes and hence the duration of any activity planned as per the programme should be around _____ minutes.

Ans

✓ 1. 15 to 20; 20

✗ 2. 30 to 40; 60

✗ 3. 30; 45

✗ 4. 30 to 35; 50

Question ID : **441009984687**
Option 1 ID : **4410093891175**
Option 2 ID : **4410093891176**
Option 3 ID : **4410093891174**
Option 4 ID : **4410093891177**

QuickSarkari.com | WhatsApp Channel | Telegram: t.me/quick_sarkari

Q.13 According to Jean Piaget, at which stage of cognitive development are children unable to differentiate living and non-living objects?

Ans
✔ 1. Pre-operational stage
✘ 2. Sensorimotor stage
✘ 3. Concrete operational stage
✘ 4. Formal operational stage

Question ID : **441009984524**
Option 1 ID : **4410093890523**
Option 2 ID : **4410093890522**
Option 3 ID : **4410093890524**
Option 4 ID : **4410093890525**

Q.14 Which of the following is NOT a factor leading to cerebral palsy during prenatal period?

Ans
✘ 1. Chromosomal abnormalities
✘ 2. Toxic injuries
✔ 3. Heredity
✘ 4. Maternal anoxia

Question ID : **441009984741**
Option 1 ID : **4410093891392**
Option 2 ID : **4410093891391**
Option 3 ID : **4410093891393**
Option 4 ID : **4410093891390**

Q.15 The ECCE personnel need to ensure that effective communication with parents supports the child's _____.

Ans
✔ 1. learning and development
✘ 2. growth and development
✘ 3. numeracy and literacy
✘ 4. reading and writing

Question ID : **441009984352**
Option 1 ID : **4410093889835**
Option 2 ID : **4410093889834**
Option 3 ID : **4410093889836**
Option 4 ID : **4410093889837**

Q.16 Which would be the best activity by parents to get the child socially ready for school?

Ans
✘ 1. Comparing the child with neighbour's child
✘ 2. Being a liberal parent and encouraging the child to mingle with strangers
✘ 3. Giving elaborate instructions to the child
✔ 4. Setting rules and informing the child the consequences for breaking them

Question ID : **441009984359**
Option 1 ID : **4410093889864**
Option 2 ID : **4410093889865**
Option 3 ID : **4410093889862**
Option 4 ID : **4410093889863**

QuickSarkari.com | WhatsApp Channel | Telegram: t.me/quick_sarkari

Q.17 Which is NOT an agent of gender socialisation?

Ans
✗ 1. Peers
✓ 2. Nature
✗ 3. Family
✗ 4. School

Question ID : **4410091073453**
Option 1 ID : **4410094231268**
Option 2 ID : **4410094231269**
Option 3 ID : **4410094231267**
Option 4 ID : **4410094231270**

Q.18 When planning and organising a pre-school education programme to promote gender diversity and inclusion, which of the following strategies is most effective?

Ans
✗ 1. Encouraging teachers to avoid discussing gender-related topics with children
✗ 2. Arranging classroom seating so boys and girls are always in separate groups
✓ 3. Selecting learning materials that include diverse gender identities and family structures
✗ 4. Designing activities that assign roles strictly based on traditional gender expectations

Question ID : **4410091023594**
Option 1 ID : **4410094045992**
Option 2 ID : **4410094045991**
Option 3 ID : **4410094045990**
Option 4 ID : **4410094045989**

Q.19 Which of the following ways are culturally-linguistically appropriate strategies to be employed in the classroom?

a. Encouraging social interactions
b. Adopting the mother tongue as medium of instruction in schools
c. Open dialogue among families and teachers
d. Learning only about our cultures and expectations

Ans
✗ 1. a, c and d
✗ 2. a, b and d
✓ 3. a, b and c
✗ 4. b, c and d

Question ID : **441009984654**
Option 1 ID : **4410093891045**
Option 2 ID : **4410093891043**
Option 3 ID : **4410093891042**
Option 4 ID : **4410093891044**

QuickSarkari.com | WhatsApp Channel | Telegram: t.me/quick_sarkari

Q.20 Which is an essential characteristic of children at the ECE stage?

Ans

✗ 1. They enjoy long lectures and note-taking.

✓ 2. They learn better through concrete experiences.

✗ 3. Abstract thinking is fully developed.

✗ 4. They prefer competition over cooperation.

Question ID : **4410091083152**
Option 1 ID : **4410094269796**
Option 2 ID : **4410094269794**
Option 3 ID : **4410094269793**
Option 4 ID : **4410094269795**

Section : **Discipline4**

Q.1 What is the best method to introduce young children to the concept of volume?

Ans

✓ 1. Filling and emptying containers with sand or water

✗ 2. Using balance scales

✗ 3. Sorting objects by shape

✗ 4. Drawing geometric shapes

Question ID : **441009984052**
Option 1 ID : **4410093888641**
Option 2 ID : **4410093888638**
Option 3 ID : **4410093888639**
Option 4 ID : **4410093888640**

Q.2 Which type of play, according to Smilansky, involves children using objects to construct something and involves sensorimotor activities?

Ans

✗ 1. Games with Rules

✗ 2. Dramatic Play

✓ 3. Constructive Play

✗ 4. Functional Play

Question ID : **441009983931**
Option 1 ID : **4410093888157**
Option 2 ID : **4410093888154**
Option 3 ID : **4410093888155**
Option 4 ID : **4410093888156**

Q.3 Why are nurturing relationships important for children's learning at an early stage?

Ans

✗ 1. They encourage competition and individualism.

✗ 2. They reduce the need for play and exploration.

✗ 3. They make children dependent on adults.

✓ 4. They help children feel safe, optimistic, curious and communicative.

Question ID : **441009983859**
Option 1 ID : **4410093887867**
Option 2 ID : **4410093887868**
Option 3 ID : **4410093887869**
Option 4 ID : **4410093887866**

QuickSarkari.com | WhatsApp Channel | Telegram: t.me/quick_sarkari

Q.4 **Jean Piaget was a child psychologist. He was a Swiss developmental psychologist and father of cognitive theory of children. Early childhood stage comes under Piaget's _____ of intelligence.**

Ans
✗ 1. Concrete operational stage

✗ 2. Sensory-motor stage

✗ 3. Formal operational stage

✓ 4. Preoperational stage

Question ID : **441009984469**
Option 1 ID : **4410093890303**
Option 2 ID : **4410093890302**
Option 3 ID : **4410093890304**
Option 4 ID : **4410093890305**

Q.5 **Play with objects starts at _____ of age because children acquire eye-hand coordination for grasping objects.**

Ans
✗ 1. 7-8 months

✗ 2. 3-4 months

✗ 3. 1 year

✓ 4. 4-5 months

Question ID : **441009984308**
Option 1 ID : **4410093889658**
Option 2 ID : **4410093889660**
Option 3 ID : **4410093889659**
Option 4 ID : **4410093889661**

Q.6 **Which nutrient is primarily responsible for body-building and repair?**

Ans
✗ 1. Fats

✗ 2. Vitamins

✗ 3. Carbohydrates

✓ 4. Proteins

Question ID : **4410091083187**
Option 1 ID : **4410094269934**
Option 2 ID : **4410094269936**
Option 3 ID : **4410094269933**
Option 4 ID : **4410094269935**

Q.7 **Which of the following statements is FALSE based on the principles of programme planning?**

Ans
✗ 1. It is important for an ECCE programme to balance both children's development and contextual needs.

✗ 2. Young children learn best when they can play, observe and express themselves.

✓ 3. A high-quality ECCE programme should only focus on providing academic knowledge rather than offering diverse learning opportunities.

✗ 4. According to developmental characteristics, all children are naturally motivated to learn and are capable of learning.

Question ID : **441009983585**
Option 1 ID : **4410093886770**
Option 2 ID : **4410093886772**
Option 3 ID : **4410093886771**
Option 4 ID : **4410093886773**

Q.8 The 'sensitive period' of development is a critical time for a child's learning when children learn a wide variety of new skills. There are five major skills. Four of them are given below. Identify the fifth one from the options.

i. Order skills
ii. Sensory skills
iii. Motor skills
iv. Social skills

Ans
✗ 1. Self-defence skills
✗ 2. Writing skills
✗ 3. Dramatisation skills
✓ 4. Language skills

Question ID : **441009984677**
Option 1 ID : **4410093891137**
Option 2 ID : **4410093891134**
Option 3 ID : **4410093891136**
Option 4 ID : **4410093891135**

Q.9 Which of the following activities promotes children's understanding of patterns in early mathematics?

Ans
✗ 1. Sitting quietly and listening to lectures
✗ 2. Memorising multiplication tables
✗ 3. Repeating the same activity every day
✓ 4. Sorting coloured beads to create a sequence

Question ID : **4410091037768**
Option 1 ID : **4410094101629**
Option 2 ID : **4410094101628**
Option 3 ID : **4410094101626**
Option 4 ID : **4410094101627**

Q.10 Arrange the following developmental stages of mathematical problem-solving in chronological order.

a. Trial and error
b. Using strategies based on prior knowledge
c. Developing systematic approaches
d. Reflecting on problem-solving processes

Ans
✓ 1. a, b, c, d
✗ 2. c, d, b, a
✗ 3. b, c, a, d
✗ 4. b, a, d, c

Question ID : **441009984099**
Option 1 ID : **4410093888827**
Option 2 ID : **4410093888828**
Option 3 ID : **4410093888829**
Option 4 ID : **4410093888826**

QuickSarkari.com | WhatsApp Channel | Telegram: t.me/quick_sarkari

Q.11 What is the purpose of nature walk in field observation?

Ans
1. To work in the field
2. To provide physical exercise
3. To promote observation and inquisitiveness
4. To break the monotony

Question ID : **441009983847**
Option 1 ID : **4410093887821**
Option 2 ID : **4410093887818**
Option 3 ID : **4410093887820**
Option 4 ID : **4410093887819**

Q.12 State which of the following statements is/are correct.

(A) The healthy relationship between the ECCE centre and parents promotes strong family involvement in the child's learning.
(B) It can also bring positive change in the attitude of parents for the value of ECCE.

Ans
1. Both A and B are incorrect
2. B is correct, A is incorrect
3. Both A and B are correct
4. A is correct, B is incorrect

Question ID : **441009983656**
Option 1 ID : **4410093887055**
Option 2 ID : **4410093887057**
Option 3 ID : **4410093887054**
Option 4 ID : **4410093887056**

Q.13 What is a key benefit of field observation for nursery teacher trainees?

Ans
1. It helps them memorise the content of the school curriculum.
2. It provides real-life experience with children and classroom tasks.
3. It completely replaces the need for learning theoretical concepts.
4. It allows them to avoid taking up classroom responsibilities.

Question ID : **4410091041057**
Option 1 ID : **4410094113310**
Option 2 ID : **4410094113312**
Option 3 ID : **4410094113313**
Option 4 ID : **4410094113311**

Q.14 When selecting equipment and learning materials, why is it important to consider if they can be used by children of all abilities?

Ans
1. To make cleaning easier
2. To save costs
3. To keep children entertained
4. To ensure inclusivity and accessibility

Question ID : **441009983914**
Option 1 ID : **4410093888088**
Option 2 ID : **4410093888086**
Option 3 ID : **4410093888089**
Option 4 ID : **4410093888087**

QuickSarkari.com | WhatsApp Channel | Telegram: t.me/quick_sarkari

Q.15 Which strategy best demonstrates anti-discriminatory practice in an early childhood classroom?

Ans

✗ 1. Assigning classroom jobs by gender to promote fairness

✗ 2. Using only stories that show traditional family structures

✓ 3. Encouraging children to choose any activity, regardless of gender norms

✗ 4. Seating boys and girls separately during group work

Question ID : **4410091023568**
Option 1 ID : **4410094045869**
Option 2 ID : **4410094045872**
Option 3 ID : **4410094045870**
Option 4 ID : **4410094045871**

Q.16 State whether the following statements are correct or incorrect.
a. Weekly planning includes setting realistic goals and objectives.
b. Monthly planning does not help teachers stay on track and meet deadlines.

Ans

✓ 1. a is correct; b is incorrect.

✗ 2. a and b are correct.

✗ 3. a and b are incorrect.

✗ 4. a is incorrect; b is correct.

Question ID : **441009983690**
Option 1 ID : **4410093887190**
Option 2 ID : **4410093887192**
Option 3 ID : **4410093887191**
Option 4 ID : **4410093887193**

Q.17 What is Early Childhood Special Education (ECSE) in the ECCE setting?

Ans

✗ 1. Special education and related services provided to children below 7 years

✗ 2. Special education and related services provided to children below 10 years

✓ 3. Special education and related services provided to children from 3 years to 5 years

✗ 4. Special education and related services provided to children below 3 years

Question ID : **441009984728**
Option 1 ID : **4410093891340**
Option 2 ID : **4410093891341**
Option 3 ID : **4410093891339**
Option 4 ID : **4410093891338**

Q.18 Which of the following measures is NOT suitable for meeting individual differences in the classroom?

Ans

✓ 1. Rigid curriculum

✗ 2. Having the knowledge of the individual's potentialities

✗ 3. Ability grouping

✗ 4. Individualised instruction

Question ID : **441009984556**
Option 1 ID : **4410093890651**
Option 2 ID : **4410093890653**
Option 3 ID : **4410093890650**
Option 4 ID : **4410093890652**

QuickSarkari.com | WhatsApp Channel | Telegram: t.me/quick_sarkari

Q.19 Which method encourages children to learn through play and exploration?

Ans
✔ 1. Play-way method
✘ 2. Rote memorisation
✘ 3. Dictation method
✘ 4. Lecture method

Question ID : **4410091037932**
Option 1 ID : **4410094102275**
Option 2 ID : **4410094102274**
Option 3 ID : **4410094102277**
Option 4 ID : **4410094102276**

Q.20 निम्नलिखित में से किस मुद्दे पर माता-पिता और समुदाय के सदस्यों के बीच चर्चा नहीं की जा सकती?

Ans
✘ 1. क्षेत्र में प्रदूषण
✘ 2. बच्चों को होने वाले रोग
✔ 3. व्यक्तिगत बच्चों के कठिन व्यवहार का प्रबंधन
✘ 4. प्रतिवेश में स्वच्छता

Question ID : **441009984350**
Option 1 ID : **4410093889828**
Option 2 ID : **4410093889829**
Option 3 ID : **4410093889826**
Option 4 ID : **4410093889827**

Section : **Discipline5**

Q.1 To co-construct, children need to develop the ability to _____ their ideas and build on others' ideas.

Ans
✘ 1. make
✘ 2. take
✘ 3. create
✔ 4. share

Question ID : **441009983882**
Option 1 ID : **4410093887960**
Option 2 ID : **4410093887959**
Option 3 ID : **4410093887961**
Option 4 ID : **4410093887958**

QuickSarkari.com | WhatsApp Channel | Telegram: t.me/quick_sarkari

Q.2 **The acquisition of which of the following abilities does NOT fall under 'cognitive development'?**

Ans
✔ 1. Ability to speak fluently

✘ 2. Ability to think and imagine

✘ 3. Ability to take decisions

✘ 4. Ability to categorise

Question ID : **441009984661**
Option 1 ID : **4410093891071**
Option 2 ID : **4410093891070**
Option 3 ID : **4410093891073**
Option 4 ID : **4410093891072**

Q.3 **Match the NEP 2020 components in Column A with their corresponding descriptions in Column B.**

Column A: Components	
1. Foundational Literacy and Numeracy	A) Including holistic adult education curricu topics of interest or use for local learners s
2. Critical Life Skills	B) Financial literacy, digital literacy, vocatio and family welfare
3. Vocational Skills Development	C) Including elementary, middle, and secon
4. Basic Education	D) To seek local employment
5. Continuing Education	E) Fundamental skills of reading, writing, ar

Ans
✘ 1. 1-E, 2-D, 3-C, 4-B, 5-A

✔ 2. 1-E, 2-B, 3-D, 4-C, 5-A

✘ 3. 1-A, 2-B, 3-C, 4-D, 5-E

✘ 4. 1-B, 2-A, 3-E, 4-C, 5-D

Question ID : **441009984029**
Option 1 ID : **4410093888546**
Option 2 ID : **4410093888547**
Option 3 ID : **4410093888548**
Option 4 ID : **4410093888549**

Q.4 **प्रीस्कूलों में प्रवेश के लिए _____ के कारण बच्चों को अस्वीकार कर दिया जाता है, जिससे कम आयु में ही उनका आत्म-विश्वास और आत्म-सम्मान नष्ट हो सकता है।**

Ans
✘ 1. निर्माणात्मक मूल्यांकन (Formative assessment)

✘ 2. योगात्मक मूल्यांकन (Summative assessment)

✔ 3. औपचारिक परीक्षाओं (Formal tests)

✘ 4. अनौपचारिक मूल्यांकन (Informal assessment)

Question ID : **441009984324**
Option 1 ID : **4410093889725**
Option 2 ID : **4410093889724**
Option 3 ID : **4410093889722**
Option 4 ID : **4410093889723**

QuickSarkari.com | WhatsApp Channel | Telegram: t.me/quick_sarkari

Q.5 What is the term for understanding the position of objects in relation to oneself and others?

Ans
1. Measurement
2. Shape recognition
3. Spatial awareness
4. Size comparison

Question ID : **441009984053**
Option 1 ID : **4410093888644**
Option 2 ID : **4410093888643**
Option 3 ID : **4410093888642**
Option 4 ID : **4410093888645**

Q.6 In learner/child centred activity approach, the rationale for the choice of activity vests with the _____.

Ans
1. Teacher
2. Worker
3. Child
4. Parent

Question ID : **441009983692**
Option 1 ID : **4410093887198**
Option 2 ID : **4410093887199**
Option 3 ID : **4410093887201**
Option 4 ID : **4410093887200**

Q.7 Which of the following is an effective method for teaching children with visual impairment through non-visual modes?

Ans
1. Watching educational videos
2. Reading silently
3. Listening to detailed instructions
4. Copying from the board

Question ID : **4410091088128**
Option 1 ID : **4410094290012**
Option 2 ID : **4410094290015**
Option 3 ID : **4410094290013**
Option 4 ID : **4410094290014**

QuickSarkari.com | WhatsApp Channel | Telegram: t.me/quick_sarkari

Q.8 Sensory development relates to:

A) sense of hearing
B) sense of seeing
C) sense of classifying
D) sense of taste

Ans
✗ 1. A, C and D
✗ 2. A, B, C and D
✓ 3. A, B and D
✗ 4. C and D

Question ID : **441009983607**
Option 1 ID : **4410093886859**
Option 2 ID : **4410093886858**
Option 3 ID : **4410093886860**
Option 4 ID : **4410093886861**

Q.9 Teaching is best described as a process that is:

Ans
✗ 1. A one-way communication
✗ 2. A mechanical delivery of facts
✗ 3. Based only on textbook content
✓ 4. An interaction between teacher and student

Question ID : **4410091083438**
Option 1 ID : **4410094270831**
Option 2 ID : **4410094270832**
Option 3 ID : **4410094270834**
Option 4 ID : **4410094270833**

Q.10 Puppets, both ready-made and made by the teacher with the children can be used to enhance one of the learning strategies used in the classroom. Which strategy would greatly benefit from use of puppets?

Ans
✗ 1. Toy-based learning
✗ 2. Music and movement
✗ 3. Conversations
✓ 4. Storytelling

Question ID : **441009983879**
Option 1 ID : **4410093887949**
Option 2 ID : **4410093887947**
Option 3 ID : **4410093887948**
Option 4 ID : **4410093887946**

QuickSarkari.com | WhatsApp Channel | Telegram: t.me/quick_sarkari

Q.11 Match the following.

Domain of development	Associated Skill
A. Cognitive	a) Gross and fine motor
B. Socio emotional	b) Communication, listening and speaking
C. Physical and motor	c) Understanding of self
D. Language	d) Thinking

Ans
✗ 1. A-----b; B----d; C-----a; D-----c.
✗ 2. A-----c; B----a; C-----d; D-----b.
✓ 3. A-----d; B----c; C-----a; D-----b.
✗ 4. A-----d; B----c; C-----b; D-----a.

Question ID : **441009984509**
Option 1 ID : **4410093890464**
Option 2 ID : **4410093890463**
Option 3 ID : **4410093890465**
Option 4 ID : **4410093890462**

Q.12 क्षेत्र अवलोकन में, वस्तुनिष्ठ अवलोकन का क्या महत्व होता है?

Ans
✗ 1. बच्चों के साथ जुड़ना
✗ 2. विशिष्ट व्यवहारों पर ध्यान केंद्रित करना
✓ 3. पूर्वाग्रह से बचना
✗ 4. शिक्षकों की प्रभावशीलता का मूल्यांकन करना

Question ID : **441009983803**
Option 1 ID : **4410093887644**
Option 2 ID : **4410093887643**
Option 3 ID : **4410093887642**
Option 4 ID : **4410093887645**

Q.13 Symbolic play happens at the age of:

Ans
✓ 1. 2–7 years
✗ 2. 0–2 years
✗ 3. 7–11 years
✗ 4. 11–16 years

Question ID : **441009984298**
Option 1 ID : **4410093889619**
Option 2 ID : **4410093889618**
Option 3 ID : **4410093889620**
Option 4 ID : **4410093889621**

QuickSarkari.com | WhatsApp Channel | Telegram: t.me/quick_sarkari

Q.14 _____ is the backbone of the education of the blind.

Ans

✗ 1. Visual aids

✗ 2. Primacy of speech

✓ 3. Braille

✗ 4. Oral approach

Question ID : **441009984731**
Option 1 ID : **4410093891353**
Option 2 ID : **4410093891352**
Option 3 ID : **4410093891351**
Option 4 ID : **4410093891350**

Q.15 Which key strategy is emphasised in India's National ECCE Policy (2013) to ensure culturally relevant early childhood education?

Ans

✓ 1. Development of locally contextualised curricula in mother tongue

✗ 2. Exclusive use of digital learning for preschoolers

✗ 3. Appointment of only graduate teachers in preschools

✗ 4. Standardised English-only curriculum for all states

Question ID : **4410091037404**
Option 1 ID : **4410094100189**
Option 2 ID : **4410094100187**
Option 3 ID : **4410094100188**
Option 4 ID : **4410094100186**

Q.16 To tackle the issue of malnutrition seen in the children of migrant labourers and tribes, which of the following schemes/policies, launched by the Government of India, would be helpful in addressing the issue?

Ans

✗ 1. ICPS

✓ 2. ICDS

✗ 3. RPWD

✗ 4. POCSO

Question ID : **441009984652**
Option 1 ID : **4410093891034**
Option 2 ID : **4410093891037**
Option 3 ID : **4410093891036**
Option 4 ID : **4410093891035**

QuickSarkari.com | WhatsApp Channel | Telegram: t.me/quick_sarkari

Q.17 The Government of India launched the Integrated Child Development Services scheme for child care and development, which covers 6 services. Four of them are:
i. Supplementary nutrition
ii. Nutrition and health education
iii. Health check-up
iv. Referral services
Which are the 2 remaining services?

Ans
✗ 1. Pre-school formal education and Midday meals
✗ 2. Secondary school formal education and Inclusive education
✗ 3. Free books/ uniform and Transport facility
✓ 4. Pre-school non formal education and Immunisation

Question ID : **441009984670**
Option 1 ID : **4410093891107**
Option 2 ID : **4410093891109**
Option 3 ID : **4410093891108**
Option 4 ID : **4410093891106**

Q.18 How can teachers make children more independent in their learning?

Ans
✗ 1. By providing a fixed routine without flexibility
✗ 2. By taking control of all tasks and decisions
✓ 3. By gradually releasing support as children become more confident in organising group tasks
✗ 4. By focusing only on individual tasks without group activities

Question ID : **441009983861**
Option 1 ID : **4410093887877**
Option 2 ID : **4410093887874**
Option 3 ID : **4410093887875**
Option 4 ID : **4410093887876**

Q.19 Match the principles in Column A with the corresponding descriptions in Column B, and select the correct option.

Column A: Principles	Column B: Descriptions
1. Preserve life	a. This includes the use of ice packs or applying a sling.
2. Ensure protection of the casualty from further harm	b. This includes preserving the life of the casualty and the rescuer.
3. Provide pain relief	c. This ensures that the first aid procedures do not worsen the patient's condition.
4. Prevent the condition from worsening	d. The treatment area needs to be safe and must not have excess people.

Ans
✗ 1. 1-b, 2-a, 3-d, 4-c
✗ 2. 1-a, 2-b, 3-c, 4-d
✓ 3. 1-b, 2-d, 3-a, 4-c
✗ 4. 1-d, 2-c, 3-b, 4-a

Question ID : **441009984201**
Option 1 ID : **4410093889236**
Option 2 ID : **4410093889235**
Option 3 ID : **4410093889237**
Option 4 ID : **4410093889234**

Q.20 Which of the following practices best reflects effective community involvement in early childhood education?

Ans
✗ 1. Restricting communication between school and local organisations

✓ 2. Using community resources to support learning and cultural awareness

✗ 3. Depending entirely on textbooks for teaching about culture and tradition

✗ 4. Involving community members only during annual school functions

Question ID : **4410091045054**
Option 1 ID : **4410094129308**
Option 2 ID : **4410094129307**
Option 3 ID : **4410094129309**
Option 4 ID : **4410094129306**

Quick Sarkari

Quick Sarkari

Thank you for studying with QuickSarkari!

Get the latest Sarkari Naukri notifications, admit cards, results, answer keys and free previous-year papers first - follow us on WhatsApp and Telegram.

Visit www.quicksarkari.com

Join our WhatsApp Channel

https://whatsapp.com/channel/0029VaxxbrREquiPoXTWM229

Join our Telegram Channel

https://t.me/quick_sarkari

Share this PDF with your friends preparing for DSSSB exams.