Quick Sarkari

DSSSB PREVIOUS YEAR PAPER WITH ANSWER KEY

DSSSB Auxiliary Nurse Midwife (ANM)

11 April 2025 · Shift 1

डीएसएसएसबी सहायक नर्स मिडवाइफ (ANM) – 11 अप्रैल 2025, शिफ्ट 1 का प्रश्न पत्र, उत्तर कुंजी सहित

198	120 min	1 / −0.25	EN + HI
Questions / प्रश्न	Duration / समय	Marks per Q / अंक	Language / भाषा

Sections: General intelligence and Reasoning Ability, General Awareness, Arithmetical and Numerical Ability, English Language and Comprehension, Hindi Language and Comprehension, Auxiliary Nurse Midwife (ANM)

INSIDE THIS PDF / इस PDF में

Question Paper in English + Hindi with Answer Key (correct option marked in green) + answer table — Page 2–43
प्रश्न पत्र अंग्रेज़ी + हिंदी में, उत्तर कुंजी सहित (सही विकल्प हरे रंग में) + उत्तर तालिका

Official DSSSB Response Sheet with Answer Key (correct option ticked in green) — Page 44–105
आधिकारिक DSSSB रिस्पॉन्स शीट, उत्तर कुंजी सहित (सही विकल्प हरे टिक से)

HOW TO USE THIS PAPER / इस पेपर का उपयोग कैसे करें

1. Attempt the paper first as a timed online mock test (link below).
   पहले नीचे दिए लिंक से इसे टाइमर के साथ ऑनलाइन मॉक टेस्ट के रूप में हल करें।
2. Check your score, section-wise analysis and solutions online.
   ऑनलाइन अपना स्कोर, खंड-वार विश्लेषण और हल देखें।
3. Use this PDF for revision. Correct answers are shown in green.
   दोहराने के लिए इस PDF का उपयोग करें। सही उत्तर हरे रंग में दिए गए हैं।

Attempt this paper as a FREE online mock test

इस पेपर को फ्री ऑनलाइन मॉक टेस्ट के रूप में हल करें – टाइमर, स्कोर और हल के साथ

https://quicksarkari.com/dsssb-auxiliary-nurse-midwife-anm-11-april-2025-shift-1-mock-test/

All DSSSB Auxiliary Nurse Midwife (ANM) papers and mock tests: **quicksarkari.com/dsssb-mock-test/#auxiliary-nurse-midwife-anm**

Join WhatsApp Channel | Join Telegram Channel

DSSSB Auxiliary Nurse Midwife (ANM) – Question Paper (English + Hindi)

DSSSB सहायक नर्स मिडवाइफ (ANM) – प्रश्न पत्र (अंग्रेज़ी + हिंदी)

Exam held on 11 April 2025, Shift 1 · 198 questions · correct answers marked ✔ in green
परीक्षा तिथि 11 अप्रैल 2025, शिफ्ट 1 · 198 प्रश्न · सही उत्तर हरे रंग में ✔ से चिह्नित

> The official paper for this shift was in English. The Hindi version of each question is a translation prepared by QuickSarkari; the language-section questions are shown as asked.
> इस शिफ्ट का आधिकारिक प्रश्न पत्र अंग्रेज़ी में था। प्रत्येक प्रश्न का हिंदी संस्करण QuickSarkari द्वारा तैयार किया गया अनुवाद है; भाषा खंड के प्रश्न मूल रूप में दिए गए हैं।

General intelligence and Reasoning Ability

Q.1 Read the given statements and conclusions carefully. Assuming that the information given in the statements is true, even if it appears to be at variance with commonly known facts, decide which of the given conclusion(s) logically follow(s) from the statements.
Statements:
Some pins are tins.
Some tins are bins.
Conclusions:
(I) Some pins are bins.
(II) All bins are tins.
दिए गए कथनों और निष्कर्षों को ध्यानपूर्वक पढ़िए। यह मानते हुए कि कथनों में दी गई जानकारी सत्य है, भले ही वह सामान्यतः ज्ञात तथ्यों से भिन्न प्रतीत होती हो, निर्णय लीजिए कि दिए गए निष्कर्षों में से कौन-सा/कौन-से निष्कर्ष तार्किक रूप से कथनों का अनुसरण करता है/करते हैं।
कथन:
कुछ पिन, टिन हैं।
कुछ टिन, बिन हैं।
निष्कर्ष:
(I) कुछ पिन, बिन हैं।
(II) सभी बिन, टिन हैं।

(1) Only conclusion (II) follows. / केवल निष्कर्ष (II) अनुसरण करता है।
(2) Both conclusions (I) and (II) follow. / निष्कर्ष (I) और (II) दोनों अनुसरण करते हैं।
(3) Neither conclusion (I) nor (II) follows. / न तो निष्कर्ष (I) और न ही (II) अनुसरण करता है। ✔
(4) Only conclusion (I) follows. / केवल निष्कर्ष (I) अनुसरण करता है।

Q.2 Refer to the following letter and symbol series and answer the question that follows. Counting to be done from left to right only.
(Left) P @ Q # R $ S & T U % V ^ W & X ^ Y $ Z # Ω A Φ B (Right)
If all the letters are dropped from the series, which of the following will be eighth from the right?
निम्नलिखित अक्षर और प्रतीक श्रृंखला को देखिए और उसके बाद दिए गए प्रश्न का उत्तर दीजिए। गिनती केवल बाएँ से दाएँ की जानी है।
(बाएँ) P @ Q # R $ S & T U % V ^ W & X ^ Y $ Z # Ω A Φ B (दाएँ)
यदि श्रृंखला से सभी अक्षर हटा दिए जाएँ, तो निम्नलिखित में से कौन-सा दाएँ से आठवें स्थान पर होगा?

(1) % ✔
(2) $
(3) ^
(4) &

Q.3 Refer to the following number and symbol series and answer the question that follows. Counting to be done from left to right only.
(Left) 1 & 9 2 6 @ 3 % 7 Ω & 5 # £ 2 8 4 * (Right)
How many such symbols are there, each of which is immediately preceded by an odd number but not immediately followed by an odd number?

निम्नलिखित संख्या और प्रतीक श्रृंखला को देखिए और उसके बाद दिए गए प्रश्न का उत्तर दीजिए।
गिनती केवल बाएँ से दाएँ की जानी है।
(बाएँ) 1 & 9 2 6 @ 3 % 7 Ω & 5 # £ 2 8 4 * (दाएँ)
ऐसे कितने प्रतीक हैं, जिनमें से प्रत्येक के ठीक पहले एक विषम संख्या है, लेकिन ठीक बाद में विषम संख्या नहीं है?

(1) Two / दो ✔
(2) One / एक
(3) None / कोई नहीं
(4) Three / तीन

Q.4 Each of P, Q, R, S, T, U and X has an exam on a different day of a week, starting from Monday and ending on Sunday of the same week. P has an exam on Thursday. Only one person has an exam before T. U has an exam on one of the days after T and on one of the days before P. X has an exam on the day immediately before Q. Only one person has an exam between X and S. How many people have exams between Q and U?

P, Q, R, S, T, U और X में से प्रत्येक की परीक्षा एक ही सप्ताह के अलग-अलग दिन है, जो सोमवार से शुरू होकर उसी सप्ताह के रविवार को समाप्त होता है। P की परीक्षा गुरुवार को है। T से पहले केवल एक व्यक्ति की परीक्षा है। U की परीक्षा T के बाद वाले दिनों में से किसी एक दिन और P से पहले वाले दिनों में से किसी एक दिन है। X की परीक्षा Q से ठीक पहले वाले दिन है। X और S के बीच केवल एक व्यक्ति की परीक्षा है।
Q और U के बीच कितने व्यक्तियों की परीक्षाएँ हैं?

(1) One / एक
(2) Four / चार
(3) Two / दो ✔
(4) Three / तीन

Q.5 Refer to the following number series and answer the question that follows (all numbers are single-digit numbers only). Counting to be done from left to right only.
(Left) 5 2 6 4 3 2 5 6 4 2 7 1 8 3 2 8 9 1 7 3 5 6 1 (Right)
How many such odd digits are there, each of which is immediately preceded by an even digit and also immediately followed by an odd digit?

निम्नलिखित संख्या श्रृंखला को देखिए और उसके बाद दिए गए प्रश्न का उत्तर दीजिए (सभी संख्याएँ केवल एक अंक वाली संख्याएँ हैं)। गिनती केवल बाएँ से दाएँ की जानी है।
(बाएँ) 5 2 6 4 3 2 5 6 4 2 7 1 8 3 2 8 9 1 7 3 5 6 1 (दाएँ)
ऐसे कितने विषम अंक हैं, जिनमें से प्रत्येक के ठीक पहले एक सम अंक है और ठीक बाद में भी एक विषम अंक है?

(1) 1
(2) 4
(3) 2 ✔
(4) 3

Q.6 If 1 is subtracted from each odd digit of the number 4528936, find the product of the digits that are repeated more than once in the new number thus formed.

यदि संख्या 4528936 के प्रत्येक विषम अंक में से 1 घटा दिया जाए, तो इस प्रकार बनी नई संख्या में एक से अधिक बार आने वाले अंकों का गुणनफल ज्ञात कीजिए।

(1) 8

(2) 24

(3) **64** ✔

(4) 40

Q.7 Based on the English alphabetical order, three of the following four letter-cluster pairs are alike in a certain way and thus form a group. Which letter-cluster pair DOES NOT belong to that group?
(Note: The odd one out is not based on the number of consonants/vowels or their position in the letter-cluster.)

अंग्रेज़ी वर्णमाला क्रम के आधार पर, निम्नलिखित चार अक्षर-समूह युग्मों में से तीन किसी निश्चित प्रकार से एकसमान हैं और इस प्रकार एक समूह बनाते हैं। कौन-सा अक्षर-समूह युग्म उस समूह से संबंधित नहीं है?
(ध्यान दें: असंगत अक्षर-समूह, उस अक्षर-समूह में व्यंजनों/स्वरों की संख्या या उनके स्थान पर आधारित नहीं है।)

(1) **HF – KI** ✔

(2) CA – GE

(3) LJ – PN

(4) US – YW

Q.8 Select the option figure that will replace the question mark (?) in the figure given below to complete the pattern.



उस विकल्प आकृति का चयन कीजिए जो नीचे दी गई आकृति में प्रश्न चिह्न (?) के स्थान पर आकर पैटर्न को पूरा करेगी।

(1) 

(2)  ✔

(3) 

(4) 

QuickSarkari.com | WhatsApp Channel | Telegram: t.me/quick_sarkari

Q.9 Seven people, L, M, N, O, W, X and Y, are sitting in a row, facing north.
Only three people sit between O and X. M sits to the immediate left of X. No one sits to the right of Y. Only two people sit between Y and M. W sits to the immediate right of L. How many people sit between N and W?

सात व्यक्ति, L, M, N, O, W, X और Y, उत्तर की ओर मुख करके एक पंक्ति में बैठे हैं।
O और X के बीच केवल तीन व्यक्ति बैठे हैं। M, X के ठीक बाईं ओर बैठा है। Y के दाईं ओर कोई नहीं बैठा है। Y और M के बीच केवल दो व्यक्ति बैठे हैं। W, L के ठीक दाईं ओर बैठा है।
N और W के बीच कितने व्यक्ति बैठे हैं?

(1) One / एक
(2) Four / चार
(3) Two / दो
(4) **Three / तीन ✔**

Q.10 In a certain code language, 'A = B' means 'A is the daughter of B', 'A $ B' means 'A is the brother of B', 'A @ B' means 'A is the wife of B', 'A * B' means ' A is the father of B.'
How is E related to J if 'E = R @ Y $ H * J'?

एक निश्चित कूट भाषा में, 'A = B' का अर्थ है 'A, B की पुत्री है', 'A $ B' का अर्थ है 'A, B का भाई है', 'A @ B' का अर्थ है 'A, B की पत्नी है', 'A * B' का अर्थ है 'A, B का पिता है।' यदि 'E = R @ Y $ H * J' है, तो E का J से क्या संबंध है?

(1) Father's sister's daughter / पिता की बहन की पुत्री
(2) Sister's daughter / बहन की पुत्री
(3) **Father's brother's daughter / पिता के भाई की पुत्री ✔**
(4) Brother's daughter / भाई की पुत्री

Q.11 Seven boxes, A, B, C, I, J, K and Y, are kept one over the other, but not necessarily in the same order. K is kept second from the top. Only four boxes are kept between A and K. C is kept at one of the positions above K. Only Y is kept between K and J. I is kept immediately below J. How many boxes are kept between B and C?

सात बक्से, A, B, C, I, J, K और Y, एक के ऊपर एक रखे गए हैं, लेकिन ज़रूरी नहीं कि इसी क्रम में हों। K को ऊपर से दूसरे स्थान पर रखा गया है। A और K के बीच केवल चार बक्से रखे गए हैं। C को K के ऊपर वाले स्थानों में से किसी एक पर रखा गया है। K और J के बीच केवल Y रखा गया है। I को J के ठीक नीचे रखा गया है।
B और C के बीच कितने बक्से रखे गए हैं?

(1) Three / तीन
(2) **Four / चार ✔**
(3) One / एक
(4) Two / दो

Q.12 What will come in the place of the question mark (?) in the following equation, if '+' and '−' are interchanged and '×' and '÷' are interchanged?
88 × 8 − 36 ÷ 5 + 15 = ?

यदि '+' और '−' को आपस में बदल दिया जाए तथा '×' और '÷' को आपस में बदल दिया जाए, तो निम्नलिखित समीकरण में प्रश्न चिह्न (?) के स्थान पर क्या आएगा?
88 × 8 − 36 ÷ 5 + 15 = ?

(1) **176 ✔**
(2) 182
(3) 178
(4) 187

Q.13 Select the number from among the given options that can replace the question mark (?) in the following series.
52 79 105 130 154 ?

दिए गए विकल्पों में से उस संख्या का चयन कीजिए जो निम्नलिखित श्रृंखला में प्रश्न चिह्न (?) के स्थान पर आ सकती है।
52 79 105 130 154 ?

(1) 186
(2) 183
(3) **177 ✔**
(4) 180

Q.14 Based on the English alphabetical order, three of the following four letter-cluster pairs are alike in a certain way and thus form a group. Which letter-cluster pair DOES NOT belong to that group?
(Note: The odd one out is not based on the number of consonants/vowels or their position in the letter-cluster.)

अंग्रेज़ी वर्णमाला क्रम के आधार पर, निम्नलिखित चार अक्षर-समूह युग्मों में से तीन किसी निश्चित प्रकार से एकसमान हैं और इस प्रकार एक समूह बनाते हैं। कौन-सा अक्षर-समूह युग्म उस समूह से संबंधित नहीं है?
(ध्यान दें: असंगत अक्षर-समूह, उस अक्षर-समूह में व्यंजनों/स्वरों की संख्या या उनके स्थान पर आधारित नहीं है।)

(1) **PA - TE ✔**
(2) DL - HQ
(3) OE - SJ
(4) YK - CP

Q.15 Select the set in which the numbers are related in the same way as are the numbers of the following sets.
(NOTE: Operations should be performed on the whole numbers, without breaking down the numbers into its constituent digits. E.g. 13 – Operations on 13 such as adding / subtracting /multiplying etc. to 13 can be performed. Breaking down 13 into 1 and 3 and then performing mathematical operations on 1 and 3 is not allowed)
13 - 12 - 25 1 - 5 - 6

उस समुच्चय का चयन कीजिए जिसमें संख्याएँ उसी प्रकार संबंधित हैं जिस प्रकार निम्नलिखित समुच्चयों की संख्याएँ संबंधित हैं।
(ध्यान दें: संख्याओं को उनके घटक अंकों में तोड़े बिना, संक्रियाएँ पूर्ण संख्याओं पर की जानी चाहिए। उदाहरण के लिए 13 – 13 पर संक्रियाएँ जैसे 13 में जोड़ना/घटाना/गुणा करना आदि किया जा सकता है। 13 को 1 और 3 में तोड़ना और फिर 1 और 3 पर गणितीय संक्रियाएँ करना वर्जित है)
13 - 12 - 25 1 - 5 - 6

(1) 22 - 9 - 32
(2) 9 - 7 - 15
(3) **4 - 19 - 23 ✔**
(4) 18 - 4 - 23

Q.16 WHIT is related to AMMY in a certain way based on the English alphabetical order. In the same way, MBYN is related to QGCS. To which of the given options is YQKC related, following the same logic?

अंग्रेज़ी वर्णमाला क्रम के आधार पर WHIT एक निश्चित प्रकार से AMMY से संबंधित है। उसी प्रकार, MBYN, QGCS से संबंधित है। उसी तर्क का अनुसरण करते हुए, YQKC दिए गए विकल्पों में से किससे संबंधित है?

(1) JOHV
(2) **CVOH ✔**
(3) JOUY
(4) JVHO

Q.17 In a certain code language, 'WARS' is coded as '9163' and 'ROAS' is coded as '3189'. What is the code for 'O' in the given code language?

एक निश्चित कूट भाषा में, 'WARS' को '9163' के रूप में कूटबद्ध किया जाता है और 'ROAS' को '3189' के रूप में कूटबद्ध किया जाता है। उस कूट भाषा में 'O' के लिए क्या कूट है?

(1) 8 ✔

(2) 3

(3) 9

(4) 1

Q.18 In the following triads, each group of letters is related to the subsequent one following a certain logic. Select from the given options, the one which follows the same logic.

OPEN – ONPE– EPNO GAME – GEAM - MAEG

निम्नलिखित त्रिकों में, अक्षरों का प्रत्येक समूह एक निश्चित तर्क के अनुसार अगले समूह से संबंधित है। दिए गए विकल्पों में से उसका चयन कीजिए जो उसी तर्क का अनुसरण करता है।

OPEN – ONPE– EPNO GAME – GEAM - MAEG

(1) KIDS – SDIK – ISDK

(2) NEAR– RAEN– REAN

(3) GAIN – INGA – IGNA

(4) FEAT – FTEA – AETF ✔

Q.19 Seven persons J, K, L, M, N, O and P are standing in a straight row (not necessarily in the same order) for a flag hoisting ceremony on Republic Day, facing north. Only two persons stand between O and P, and P stands second to the left of K. M stands third to the left of L. N stands exactly between P and K, and K stands at the extreme right end of the row. Who among the following stands at the extreme left of the row?

सात व्यक्ति J, K, L, M, N, O और P गणतंत्र दिवस पर ध्वजारोहण समारोह के लिए उत्तर की ओर मुख करके एक सीधी पंक्ति में खड़े हैं (ज़रूरी नहीं कि इसी क्रम में हों)। O और P के बीच केवल दो व्यक्ति खड़े हैं, और P, K के बाईं ओर दूसरे स्थान पर खड़ा है। M, L के बाईं ओर तीसरे स्थान पर खड़ा है। N ठीक P और K के बीच खड़ा है, और K पंक्ति के दाएँ छोर पर खड़ा है। निम्नलिखित में से कौन पंक्ति के बाएँ छोर पर खड़ा है?

(1) O

(2) N

(3) L

(4) M ✔

Q.20 In a certain code language, 'MILD' is coded as '1057' and 'MILK' is coded as '0756'. What is the code for 'K' in the given code language?

एक निश्चित कूट भाषा में, 'MILD' को '1057' के रूप में कूटबद्ध किया जाता है और 'MILK' को '0756' के रूप में कूटबद्ध किया जाता है। उस कूट भाषा में 'K' के लिए क्या कूट है?

(1) 0

(2) 5

(3) 7

(4) 6 ✔

General Awareness

Q.21 In what type of waves do individual particles of the medium move in a direction parallel to the direction of the wave?

किस प्रकार की तरंगों में माध्यम के अलग-अलग कण तरंग की दिशा के समानांतर दिशा में गति करते हैं?

(1) Electromagnetic waves / विद्युत चुंबकीय तरंगें

(2) **Longitudinal waves / अनुदैर्ध्य तरंगें ✓**

(3) Mechanical waves / यांत्रिक तरंगें

(4) Transverse waves / अनुप्रस्थ तरंगें

Q.22 Why are probiotics beneficial for human beings?

प्रोबायोटिक्स मनुष्यों के लिए लाभदायक क्यों होते हैं?

(1) Bone strength / अस्थियों की मज़बूती

(2) Skin hydration / त्वचा का जलयोजन

(3) Vision improvement / दृष्टि में सुधार

(4) **Digestive health / पाचन स्वास्थ्य ✓**

Q.23 Select the INCORRECT pair with reference to conversion of one form of energy into the other form, and their examples.

ऊर्जा के एक रूप का दूसरे रूप में रूपांतरण और उनके उदाहरणों के संदर्भ में गलत युग्म का चयन कीजिए।

(1) Mechanical energy to electrical energy – Wind turbine / यांत्रिक ऊर्जा से विद्युत ऊर्जा – पवन टरबाइन

(2) Electrical energy to heat energy – Convection heaters / विद्युत ऊर्जा से ऊष्मा ऊर्जा – संवहन हीटर

(3) Electrical energy to mechanical energy – Washing machine / विद्युत ऊर्जा से यांत्रिक ऊर्जा – वाशिंग मशीन

(4) **Heat energy to electrical energy – Solar cell / ऊष्मा ऊर्जा से विद्युत ऊर्जा – सौर सेल ✓**

Q.24 In which sport did Neeraj Chopra win a silver medal at the Paris 2024 Olympics?

नीरज चोपड़ा ने पेरिस ओलंपिक 2024 में किस खेल में रजत पदक जीता था?

(1) Shot put / गोला फेंक

(2) **Javelin throw / भाला फेंक ✓**

(3) Discus throw / चक्का फेंक

(4) High jump / ऊँची कूद

Q.25 What is the minimum age requirement to qualify for election of the President of India?

भारत के राष्ट्रपति के निर्वाचन के लिए अर्हता प्राप्त करने हेतु न्यूनतम आयु की अपेक्षा क्या है?

(1) 45 years / 45 वर्ष

(2) 30 years / 30 वर्ष

(3) **35 years / 35 वर्ष ✓**

(4) 40 years / 40 वर्ष

Q.26 Which Indian city is often referred to as the 'Cherrapunji of the South' due to high rainfall?

अधिक वर्षा के कारण किस भारतीय शहर को प्रायः 'दक्षिण का चेरापूंजी' कहा जाता है?

(1) Munnar / मुन्नार

(2) **Agumbe / आगुम्बे ✓**

(3) Ooty / ऊटी

(4) Coorg / कूर्ग

Q.27 Who among the following appoints the Chairman and other members of a State Public Service Commission?
निम्नलिखित में से कौन राज्य लोक सेवा आयोग के अध्यक्ष और अन्य सदस्यों की नियुक्ति करता है?

(1) Prime Minister of India / भारत के प्रधानमंत्री
(2) **Governor of the State / राज्य के राज्यपाल ✔**
(3) Chief Minister of the State / राज्य के मुख्यमंत्री
(4) President of India / भारत के राष्ट्रपति

Q.28 Which country was given Vice-Presidentship of the International Organization of Aids to Marine Navigation (IALA) during its first General Assembly held in February 2025 in Singapore?
फरवरी 2025 में सिंगापुर में आयोजित अंतर्राष्ट्रीय समुद्री नौवहन सहायता संगठन (IALA) की प्रथम महासभा के दौरान किस देश को उपाध्यक्ष पद प्रदान किया गया?

(1) Japan / जापान
(2) Vietnam / वियतनाम
(3) **India / भारत ✔**
(4) China / चीन

Q.29 What does 'credit' mean in banking terms?
बैंकिंग की शब्दावली में 'क्रेडिट' (ऋण) का क्या अर्थ है?

(1) A bank employee's salary / बैंक कर्मचारी का वेतन
(2) **Money borrowed from a bank / बैंक से उधार लिया गया धन ✔**
(3) Savings kept in a locker / लॉकर में रखी गई बचत
(4) Profit earned by the bank / बैंक द्वारा अर्जित लाभ

Q.30 The autobiography 'My Life and Times' was written by the renowned Indian musician:
आत्मकथा 'माई लाइफ एंड टाइम्स' प्रसिद्ध भारतीय संगीतकार _____ द्वारा लिखी गई थी:

(1) Kelucharan Mohapatra / केलुचरण महापात्र
(2) Alarmel Valli / अलारमेल वल्ली
(3) Mallika Sarabhai / मल्लिका साराभाई
(4) **Ravi Shankar / रवि शंकर ✔**

Q.31 Who was the first headmistress of the country's first girls' school in Pune and devoted her life to educating Shudras and Ati-Shudras?
पुणे में देश के प्रथम बालिका विद्यालय की पहली प्रधानाध्यापिका कौन थीं, जिन्होंने अपना जीवन शूद्रों और अति-शूद्रों को शिक्षित करने में समर्पित कर दिया?

(1) Kamini Roy / कामिनी रॉय
(2) Sarojini Naidu / सरोजिनी नायडू
(3) **Savitri Bai Phule / सावित्रीबाई फुले ✔**
(4) Anandi Gopal Joshi / आनंदी गोपाल जोशी

Q.32 Under which of the following processes does the government sell its securities to the private sector?
निम्नलिखित में से किस प्रक्रिया के अंतर्गत सरकार अपनी प्रतिभूतियाँ निजी क्षेत्र को बेचती है?

(1) Recession / मंदी
(2) Inflation / मुद्रास्फीति
(3) **Disinvestment / विनिवेश ✔**
(4) Investment / निवेश

Q.33 Which of the following statement(s) is/are correct in the context of Buddhist architecture? Stupas are places to venerate holy relics of Buddha.
Viharas are used for the living quarters of the monks.
Anda, Harmika and Chhatra were the main elements of the stupa.
बौद्ध वास्तुकला के संदर्भ में निम्नलिखित में से कौन-सा/से कथन सही है/हैं?
स्तूप बुद्ध के पवित्र अवशेषों की उपासना के स्थान हैं।
विहारों का उपयोग भिक्षुओं के निवास स्थान के रूप में किया जाता है।
अंड, हर्मिका और छत्र स्तूप के मुख्य तत्व थे।

(1) i, ii and iii / i, ii और iii ✔
(2) Only ii and iii / केवल ii और iii
(3) Only iii / केवल iii
(4) Only i and iii / केवल i और iii

Q.34 Which of the following Articles of the Indian Constitution provides for the establishment of the Union Public Service Commission (UPSC)?
भारतीय संविधान के निम्नलिखित में से किस अनुच्छेद में संघ लोक सेवा आयोग (UPSC) की स्थापना का प्रावधान है?

(1) Article 330 / अनुच्छेद 330
(2) Article 320 / अनुच्छेद 320
(3) Article 315 / अनुच्छेद 315 ✔
(4) Article 340 / अनुच्छेद 340

Q.35 What was the primary focus of the India AI Mission, approved by the Cabinet on 7 March 2024?
7 मार्च 2024 को मंत्रिमंडल द्वारा अनुमोदित इंडिया AI मिशन का प्राथमिक उद्देश्य क्या था?

(1) To strengthen the AI innovation ecosystem in India / भारत में AI नवाचार पारिस्थितिकी तंत्र को सुदृढ़ करना ✔
(2) To promote AI research in educational institutions / शैक्षणिक संस्थानों में AI अनुसंधान को बढ़ावा देना
(3) To fund AI startups across the country / देश भर में AI स्टार्टअप्स को वित्तपोषित करना
(4) To establish AI technology centres in every State / प्रत्येक राज्य में AI प्रौद्योगिकी केंद्र स्थापित करना

Q.36 Which of the following rivers forms the picturesque Dhuandhar Waterfall near Jabalpur?
निम्नलिखित में से कौन-सी नदी जबलपुर के निकट मनोरम धुआँधार जलप्रपात का निर्माण करती है?

(1) Narmada / नर्मदा ✔
(2) Godavari / गोदावरी
(3) Chambal / चंबल
(4) Kaveri / कावेरी

Q.37 In which year was the Bihar Provincial Kisan Sabha first convened?
बिहार प्रांतीय किसान सभा पहली बार किस वर्ष आयोजित की गई थी?

(1) 1931
(2) 1922
(3) 1919
(4) 1929 ✔

Q.38 Union Budget 2025-26 has proposed to set up the 'National Institute of Food Technology, Entrepreneurship and Management' in which of the following states?

केंद्रीय बजट 2025-26 में निम्नलिखित में से किस राज्य में 'राष्ट्रीय खाद्य प्रौद्योगिकी, उद्यमिता एवं प्रबंधन संस्थान' स्थापित करने का प्रस्ताव किया गया है?

(1) Bihar / बिहार ✔

(2) Madhya Pradesh / मध्य प्रदेश

(3) Odisha / ओडिशा

(4) Assam / असम

Q.39 Commerce & Industry Minister Piyush Goyal won from which Lok Sabha seat in the 2024 Lok Sabha Elections?

वाणिज्य एवं उद्योग मंत्री पीयूष गोयल ने 2024 के लोकसभा चुनावों में किस लोकसभा सीट से जीत हासिल की?

(1) Mumbai North Central / मुंबई उत्तर मध्य

(2) Mumbai North / मुंबई उत्तर ✔

(3) Mumbai South Central / मुंबई दक्षिण मध्य

(4) Mumbai South / मुंबई दक्षिण

Q.40 Which vitamins are commonly known by the names Riboflavin and Niacin?

राइबोफ्लेविन और नियासिन के नाम से सामान्यतः कौन-से विटामिन जाने जाते हैं?

(1) Vitamin B6 and Vitamin B12 / विटामिन B6 और विटामिन B12

(2) Vitamin B1 and Vitamin C / विटामिन B1 और विटामिन C

(3) Vitamin B2 and Vitamin B3 / विटामिन B2 और विटामिन B3 ✔

(4) Vitamin B5 and Vitamin K / विटामिन B5 और विटामिन K

Arithmetical and Numerical Ability

Q.41 A trader gains 40% by selling an article after two successive discounts of 60% and 37% on its marked price. If the cost price of the article is increased by 55%, then what single discount should he now give on the same marked price to get the same profit percentage as earlier?

एक व्यापारी किसी वस्तु के अंकित मूल्य पर 60% और 37% की दो क्रमिक छूट देने के बाद उसे बेचकर 40% लाभ प्राप्त करता है। यदि वस्तु के क्रय मूल्य में 55% की वृद्धि कर दी जाए, तो पहले के समान लाभ प्रतिशत प्राप्त करने के लिए उसे अब उसी अंकित मूल्य पर कितनी एकल छूट देनी चाहिए?

(1) 55.33%

(2) 60.94% ✔

(3) 56.75%

(4) 71.95%

Q.42 Kamal travels from City A to City B. If Kamal drives his car at 1/6 of his normal speed, then he reaches City B 20 minutes late.
Find the time (in minutes) that Kamal would have taken to travel from City A to City B if he drove at his normal speed.

कमल शहर A से शहर B तक यात्रा करता है। यदि कमल अपनी सामान्य चाल की 1/6 चाल से अपनी कार चलाता है, तो वह शहर B पर 20 मिनट देरी से पहुँचता है।
यदि वह अपनी सामान्य चाल से कार चलाता, तो कमल को शहर A से शहर B तक यात्रा करने में कितना समय (मिनट में) लगता, ज्ञात कीजिए।

(1) 10
(2) 5
(3) **4 ✔**
(4) 7

Q.43 Three partners invested in a business in the ratio 3 : 8 : 1. They invested their capitals for 5 months, 1 month and 10 months, respectively. What was the ratio of their profits?

तीन साझेदारों ने किसी व्यवसाय में 3 : 8 : 1 के अनुपात में निवेश किया। उन्होंने अपनी पूँजी क्रमशः 5 महीने, 1 महीने और 10 महीने के लिए निवेश की। उनके लाभों का अनुपात क्या था?

(1) 13 : 8 : 10
(2) **15 : 8 : 10 ✔**
(3) 14 : 8 : 10
(4) 17 : 8 : 10

Q.44 Evaluate:
$\sqrt{(74 + \sqrt{(44 + \sqrt{(20 + \sqrt{(17 + \sqrt{(64)})})})})}$

मान ज्ञात कीजिए:
$\sqrt{(74 + \sqrt{(44 + \sqrt{(20 + \sqrt{(17 + \sqrt{(64)})})})})}$

(1) 5
(2) **9 ✔**
(3) 11
(4) 10

Q.45 An open box is made of wood 5 cm thick. Its external dimensions are 2.55 m, 2.15 m and 1.05 m. What is the total cost of painting the inner surface of the box at ₹100 per cm^2?

एक खुला बक्सा 5 cm मोटी लकड़ी से बना है। इसकी बाहरी विमाएँ 2.55 m, 2.15 m और 1.05 m हैं। ₹100 प्रति cm^2 की दर से बक्से की आंतरिक सतह को पेंट करने की कुल लागत क्या है?

(1) ₹2,63,800
(2) ₹1,64,800
(3) **₹1,44,500 ✔**
(4) ₹1,30,350

QuickSarkari.com | WhatsApp Channel | Telegram: t.me/quick_sarkari

Q.46 The number of sport bicycles sold by a shopkeeper in five years is shown in the following bar graph. Study the bar graph and answer the question that follows.

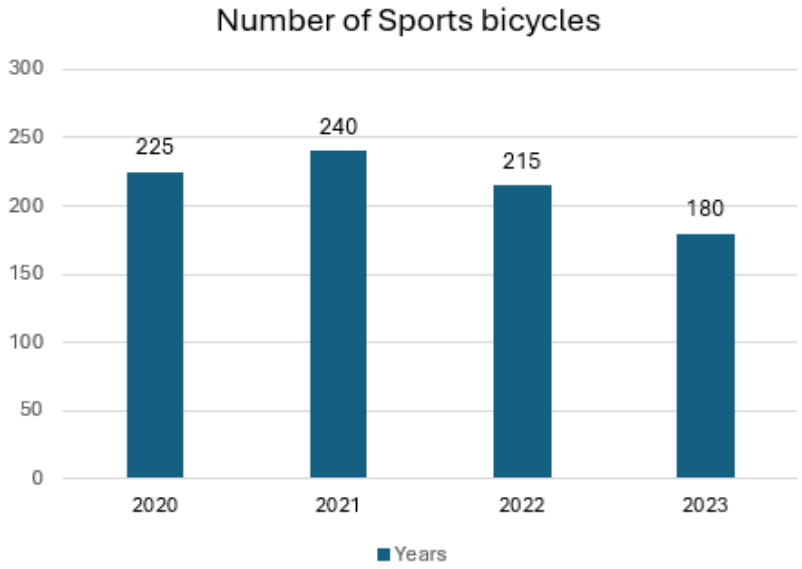

What is the percentage of decrease in the sale of sport bicycles in the year 2023 over that in the previous year? (Rounded off to two decimal places)

एक दुकानदार द्वारा पाँच वर्षों में बेची गई स्पोर्ट साइकिलों की संख्या निम्नलिखित दंड आलेख में दर्शाई गई है। दंड आलेख का अध्ययन कीजिए और उसके बाद दिए गए प्रश्न का उत्तर दीजिए।

पिछले वर्ष की तुलना में वर्ष 2023 में स्पोर्ट साइकिलों की बिक्री में कितने प्रतिशत की कमी हुई? (दशमलव के दो स्थानों तक पूर्णांकित)

(1) 22.22%

(2) 16.28% ✔

(3) 26.67%

(4) 12.34%

Q.47 The population of a district is 3,80,000, out of which 2,00,000 are males. 51% of the population is literate. If 42% males are literate, then what percentage of females are literate?

एक ज़िले की जनसंख्या 3,80,000 है, जिसमें से 2,00,000 पुरुष हैं। जनसंख्या का 51% साक्षर है। यदि 42% पुरुष साक्षर हैं, तो कितने प्रतिशत महिलाएँ साक्षर हैं?

(1) 62%

(2) 61% ✔

(3) 60%

(4) 64%

Q.48 The ratio of milk and water in a 51 litre mixture is 9 : 8. Find the quantity of water (in litres) to be added to the mixture in order to make this ratio 1 : 1.

51 लीटर मिश्रण में दूध और पानी का अनुपात 9 : 8 है। इस अनुपात को 1 : 1 करने के लिए मिश्रण में मिलाए जाने वाले पानी की मात्रा (लीटर में) ज्ञात कीजिए।

(1) 3 ✔

(2) 6

(3) 12

(4) 8

QuickSarkari.com | WhatsApp Channel | Telegram: t.me/quick_sarkari

Q.49 Atul purchased 10 kg of rice at the rate of ₹36 per kg and 40 kg of rice at ₹46 per kg. He sold the whole mixture at the rate of ₹43.5 per kg. Find his loss (in ₹).

अतुल ने ₹36 प्रति kg की दर से 10 kg चावल और ₹46 प्रति kg की दर से 40 kg चावल खरीदे। उसने पूरा मिश्रण ₹43.5 प्रति kg की दर से बेच दिया। उसकी हानि (₹ में) ज्ञात कीजिए।

(1) 33
(2) 30
(3) 20
(4) 25 ✔

Q.50 Kartik completed 60% of a work in 12 days and then Bhushan joined him from the 13th day, and they together finished the remaining work in 4 days. How long would Bhushan alone take to do the whole work?

कार्तिक ने किसी कार्य का 60% भाग 12 दिनों में पूरा किया और फिर भूषण 13वें दिन से उसके साथ जुड़ गया, और उन्होंने मिलकर शेष कार्य 4 दिनों में पूरा कर लिया। भूषण अकेले पूरे कार्य को कितने दिनों में पूरा करेगा?

(1) 18 days / 18 दिन
(2) 20 days / 20 दिन ✔
(3) 16 days / 16 दिन
(4) 12 days / 12 दिन

Q.51 Sapna invested ₹22,600 on simple interest, partly at 12% per annum and partly at 3% per annum. If she earns equal interests from the two investments after 2 years, then find the sum invested at 12% per annum (in ₹).

सपना ने ₹22,600 साधारण ब्याज पर निवेश किए, जिसका कुछ भाग 12% वार्षिक दर पर और कुछ भाग 3% वार्षिक दर पर निवेश किया। यदि 2 वर्ष बाद उसे दोनों निवेशों से समान ब्याज प्राप्त होता है, तो 12% वार्षिक दर पर निवेश की गई राशि (₹ में) ज्ञात कीजिए।

(1) 4,523
(2) 4,519
(3) 4,517
(4) 4,520 ✔

Q.52 A, B and C invest sums in the ratio 26 : 14 : 20. If they earned total profit of ₹4,150 at the end of year, then what is the difference between the shares of B and C?

A, B और C, 26 : 14 : 20 के अनुपात में राशियाँ निवेश करते हैं। यदि वर्ष के अंत में उन्होंने ₹4,150 का कुल लाभ अर्जित किया, तो B और C के हिस्सों के बीच का अंतर कितना है?

(1) ₹415 ✔
(2) ₹369
(3) ₹379
(4) ₹377

Q.53 The value of $9^2 + \sqrt{(5^2)} - 8\sqrt{4} - 10$ is:

$9^2 + \sqrt{(5^2)} - 8\sqrt{4} - 10$ का मान है:

(1) 70
(2) 60 ✔
(3) 51
(4) 62

Q.54 A can complete a work in 40 days and B can complete 50% of the same work in 30 days. Both work together for 6 days. The remaining work was completed by C alone in 9 days. Working together A, B and C will complete the same work in:

A किसी कार्य को 40 दिनों में पूरा कर सकता है और B उसी कार्य का 50% भाग 30 दिनों में पूरा कर सकता है। दोनों 6 दिनों तक एक साथ कार्य करते हैं। शेष कार्य C ने अकेले 9 दिनों में पूरा किया। A, B और C एक साथ कार्य करते हुए उसी कार्य को कितने दिनों में पूरा करेंगे?

(1) 15 days / 15 दिन
(2) **8 days / 8 दिन ✔**
(3) 10 days / 10 दिन
(4) 12 days / 12 दिन

Q.55 In an election, the winner got 80% of the total valid votes. If 18% are invalid votes out of 2,60,000 votes, then the votes polled in favour of the winner is:

एक चुनाव में, विजेता को कुल वैध मतों का 80% प्राप्त हुआ। यदि 2,60,000 मतों में से 18% मत अवैध हैं, तो विजेता के पक्ष में डाले गए मतों की संख्या है:

(1) **1,70,560 ✔**
(2) 1,50,670
(3) 1,76,500
(4) 1,60,570

Q.56 What is the smallest natural number that should be added to 9013 such that a remainder of 2 is left when the resulting number is divided by each of the numbers 21, 98, 26 and 91?

वह छोटी से छोटी प्राकृत संख्या कौन-सी है जिसे 9013 में जोड़ा जाए ताकि परिणामी संख्या को 21, 98, 26 और 91 में से प्रत्येक संख्या से विभाजित करने पर 2 शेष बचे?

(1) 2469
(2) 2465
(3) **2455 ✔**
(4) 2447

Q.57 If the product of two numbers is 8410 and their HCF is 29, then their LCM is:

यदि दो संख्याओं का गुणनफल 8410 है और उनका HCF 29 है, तो उनका LCM है:

(1) 270
(2) 310
(3) **290 ✔**
(4) 330

Q.58 What will be the difference in population 3 years ago and 2 years ago of a town, whose current population is 5,00,000 and which is increasing at a rate of 25% every year?

एक शहर, जिसकी वर्तमान जनसंख्या 5,00,000 है और जो प्रति वर्ष 25% की दर से बढ़ रही है, की 3 वर्ष पहले और 2 वर्ष पहले की जनसंख्या में कितना अंतर होगा?

(1) 63,450
(2) 63,250
(3) **64,000 ✔**
(4) 64,350

QuickSarkari.com | WhatsApp Channel | Telegram: t.me/quick_sarkari

English Language and Comprehension

Q.59 Select the most appropriate option to fill in the blank.
The _____ sky made everyone feel uneasy.

(1) omen
(2) omitting
(3) ominously
(4) **ominous ✔**

Q.60 Select the most appropriate meaning of the given proverb.
Go to bed with the lamb and rise with the lark

(1) Go to work early so that you can return to your family early.
(2) Do not go to bed unless you finish your work for the day.
(3) **Go to bed early at night and rise early in the morning. ✔**
(4) Do not go by the routines of other people, follow your own.

Q.61 Select the most appropriate option to fill in the blank.
The company ____ its operations into Africa next year.

(1) has expanding
(2) **will expand ✔**
(3) expands
(4) has expanded

Q.62 Select the option that can be used as a one-word substitute for the given group of words. An event that occurs every two years

(1) Triennial
(2) **Biennial ✔**
(3) Monthly
(4) Annual

Q.63 Select the most appropriate meaning of the given idiom.
Cost an arm and a leg

(1) **To be very expensive ✔**
(2) To remove all important things
(3) To lose a limb in an accident
(4) To win a bet

Q.64 Select the INCORRECTLY spelt word in the given sentence.
The renowned scholar's treatise provided a comprehensive analysis of medieaval philosophy, delving into esoteric concepts with unparalleled clarity.

(1) esoteric
(2) unparalleled
(3) **medieaval ✔**
(4) renowned

Q.65 Select the most appropriate synonym of the given word.
Melancholy

(1) Harmony
(2) **Despondency ✔**
(3) Mellowy
(4) Merciful

Q.66 Parts of a sentence are given below in jumbled order. Arrange the parts in the correct order to form a meaningful sentence.
mountains / proudly / the / stand / the / in / landscape.

(1) **The mountains stand proudly in the landscape. ✔**
(2) Mountains proudly in the landscape stand.
(3) The landscape in stand mountains proudly.
(4) Stand proudly the mountains in landscape.

Q.67 Select the INCORRECTLY spelt word in the given sentence.
The chef's signature dish was a delightful combination of exquisite ingridients, seasoned to perfection.

(1) signature
(2) **ingridients ✔**
(3) perfection
(4) delightful

Q.68 Select the most appropriate option to fill in the blank.
We go to the beach _____, whenever we find some free time.

(1) over and over
(2) now and again
(3) by and by
(4) **now and then ✔**

Q.69 Select the most appropriate option to fill in the blank.
Kolkata is situated ____ the east bank of the Hooghly river.

(1) against
(2) **on ✔**
(3) across
(4) in

Q.70 Sentences of a paragraph are given below in jumbled order. Arrange the sentences in the correct order to form a meaningful and coherent paragraph.
(A) Mom also mentioned that she had bought my favourite fruit, apples.
(B) Finally, she told me that she would be making a delicious stir-fry for dinner that night.
(C) She said that she had picked up fresh vegetables and chicken from the market.
(D) Yesterday, my mom told me that she had bought some groceries for dinner.

(1) BADC
(2) **DCAB ✔**
(3) ABDC
(4) CDBA

QuickSarkari.com | WhatsApp Channel | Telegram: t.me/quick_sarkari

Q.71 Select the option that can be used as a one-word substitute for the given group of words. Deriving ideas from a broad range of sources

(1) Mendacious
(2) **Eclectic ✔**
(3) Gregarious
(4) Astute

Q.72 Select the most appropriate ANTONYM of the given word.
Affluent

(1) Opulent
(2) Prosperous
(3) **Indigent ✔**
(4) Moneyed

Q.73 Select the most appropriate article to fill in the blank. If no article is needed, select 'No article required'.
Alcoholic beverages are classified as carcinogenic by _____ International Agency for Research on Cancer, and they increase the risk of several types of cancer.

(1) an
(2) **the ✔**
(3) No article required
(4) a

Q.74

Read the given passage and answer the questions that follow.
The phrase 'trench warfare' immediately conjures images of the mud and slaughter of the Western Front during World War I. Millions died in fruitless offensives that saw men "go over the top" into withering machine gun fire. Ultimately, inventions such as tanks and airplanes allowed troops to move through or over No Man's Land, and new technologies and doctrines would usher in the mobile warfare that characterised World War II in Europe. The German blitzkrieg flew over and drove around the Maginot Line, perhaps the most formidable static defensive barrier ever constructed, and that would seem to have spelled the end of trench warfare.
For this reason, and because trench warfare is so closely associated with primitive black-and- white footage of men struggling to cross the pockmarked battlefields of Belgium and France, it is commonly assumed that this military strategy is a relic of a bygone age, as likely to reappear as catapults or cavalry charges.

What is the ANTONYM of the word 'formidable' as given in the passage?

(1) Defensible
(2) Powerful
(3) Impressive
(4) **Weak ✔**

Q.75

Read the given passage and answer the questions that follow.
The phrase 'trench warfare' immediately conjures images of the mud and slaughter of the Western Front during World War I. Millions died in fruitless offensives that saw men “go over the top” into withering machine gun fire. Ultimately, inventions such as tanks and airplanes allowed troops to move through or over No Man’s Land, and new technologies and doctrines would usher in the mobile warfare that characterised World War II in Europe. The German blitzkrieg flew over and drove around the Maginot Line, perhaps the most formidable static defensive barrier ever constructed, and that would seem to have spelled the end of trench warfare.
For this reason, and because trench warfare is so closely associated with primitive black-and- white footage of men struggling to cross the pockmarked battlefields of Belgium and France, it is commonly assumed that this military strategy is a relic of a bygone age, as likely to reappear as catapults or cavalry charges.

Select the most appropriate title for the passage.

(1) Technological Decline of War Weapons
(2) The Legacy of the Western Front
(3) No Man’s Land
(4) **The Decline of Trench Warfare ✔**

Q.76

Read the given passage and answer the questions that follow.
The phrase 'trench warfare' immediately conjures images of the mud and slaughter of the Western Front during World War I. Millions died in fruitless offensives that saw men “go over the top” into withering machine gun fire. Ultimately, inventions such as tanks and airplanes allowed troops to move through or over No Man’s Land, and new technologies and doctrines would usher in the mobile warfare that characterised World War II in Europe. The German blitzkrieg flew over and drove around the Maginot Line, perhaps the most formidable static defensive barrier ever constructed, and that would seem to have spelled the end of trench warfare.
For this reason, and because trench warfare is so closely associated with primitive black-and- white footage of men struggling to cross the pockmarked battlefields of Belgium and France, it is commonly assumed that this military strategy is a relic of a bygone age, as likely to reappear as catapults or cavalry charges.

What is the tone of the passage?

(1) **Informative ✔**
(2) Nostalgic
(3) Elative
(4) Critical

QuickSarkari.com | WhatsApp Channel | Telegram: t.me/quick_sarkari

Q.77

Read the given passage and answer the questions that follow.
The phrase 'trench warfare' immediately conjures images of the mud and slaughter of the Western Front during World War I. Millions died in fruitless offensives that saw men “go over the top” into withering machine gun fire. Ultimately, inventions such as tanks and airplanes allowed troops to move through or over No Man’s Land, and new technologies and doctrines would usher in the mobile warfare that characterised World War II in Europe. The German blitzkrieg flew over and drove around the Maginot Line, perhaps the most formidable static defensive barrier ever constructed, and that would seem to have spelled the end of trench warfare.
For this reason, and because trench warfare is so closely associated with primitive black-and- white footage of men struggling to cross the pockmarked battlefields of Belgium and France, it is commonly assumed that this military strategy is a relic of a bygone age, as likely to reappear as catapults or cavalry charges.

Which of the following is the central idea of the passage?

(1) Antiquity of trench warfare ✔
(2) General warfare techniques
(3) Technological decline of warfare
(4) Evolution of modern warfare

Q.78

Read the given passage and answer the questions that follow.
The phrase 'trench warfare' immediately conjures images of the mud and slaughter of the Western Front during World War I. Millions died in fruitless offensives that saw men “go over the top” into withering machine gun fire. Ultimately, inventions such as tanks and airplanes allowed troops to move through or over No Man’s Land, and new technologies and doctrines would usher in the mobile warfare that characterised World War II in Europe. The German blitzkrieg flew over and drove around the Maginot Line, perhaps the most formidable static defensive barrier ever constructed, and that would seem to have spelled the end of trench warfare.
For this reason, and because trench warfare is so closely associated with primitive black-and- white footage of men struggling to cross the pockmarked battlefields of Belgium and France, it is commonly assumed that this military strategy is a relic of a bygone age, as likely to reappear as catapults or cavalry charges.

Which of the following is NOT a fact from the passage?

(1) Trench warfare involved many fruitless offensives and high casualties.
(2) Trench warfare is still a commonly used military strategy today. ✔
(3) The Maginot Line was the most formidable static defensive barrier ever constructed.
(4) Tanks and airplanes were significant technological innovations in World War I.

QuickSarkari.com | WhatsApp Channel | Telegram: t.me/quick_sarkari

Hindi Language and Comprehension

Q.79 निम्न वाक्यों में से अशुद्ध वाक्य का चयन कीजिए -

(1) वह कमरे में जाकर सो गया है।

(2) मैं रातभर जागा।

(3) **आपने भोजन को किया? ✔**

(4) भारत में अनेक जाति के लोग रहते हैं।

Q.80 'अधोगामी' का विलोम शब्द है-

(1) वैकल्पिक

(2) कृपण

(3) अनुध्दत

(4) **ऊर्ध्वगामी ✔**

Q.81 'भीरु' का विलोम शब्द है-

(1) भूत

(2) सुकर्म

(3) भय

(4) **निर्भीक ✔**

Q.82 'कटाक्ष' शब्द का अनेकार्थी शब्द है -

(1) खैरियत

(2) **व्यंग्य ✔**

(3) नष्ट

(4) पपड़ी

Q.83 दिए गए वाक्य में उचित क्रिया विशेषण का प्रयोग करते हुए वाक्य पूर्ण करें- सिद्धार्थ सोता है

(1) नाचता

(2) इसलिए

(3) **बहुत ✔**

(4) जैसा

Q.84 'जो उचित समय पर न हो' वाक्यांश के लिए सार्थक शब्द है-

(1) अपार

(2) **असामयिक ✔**

(3) अनुज

(4) अलौकिक

Q.85 निम्नलिखित वाक्य को क्रम में लिखें- 1- ईश्वर की 2- ओर से मिली है 3- समय वह संपत्ति है 4- जो प्रत्येक मनुष्य को

(1) 1, 3, 4, 2

(2) 2, 3, 4, 1

(3) 4, 3, 2, 1

(4) **3, 4,1, 2 ✔**

Q.86 'अस्सी की आमद चौरासी का खर्च' लोकोक्ति का सही अर्थ है-

(1) समय निकल जाने पर पछताना बेकार है

(2) अपना दोष दूसरों पर मढ़ना

(3) आय से अधिक खर्च ✔

(4) अपनी वस्तु की बुराई नहीं करना

Q.87 निम्नलिखित में से कौन-सा वाक्य अशुद्ध है?

(1) मैंने गुरुजी के दर्शन किये।

(2) श्रीमती इंदिरा गाँधी भारत की प्रधानमंत्री थी।

(3) नदियों के पानी से सिंचाई की जाती है।

(4) उसकी दुकान पर शुद्ध गाय का घी मिलता है। ✔

Q.88 निम्नलिखित वाक्य में से शुध्द वाक्य का चयन करें

(1) कृपालु जी बहुत श्रध्दावान पुरुष थे| ✔

(2) कृपालु जी बहुत श्राध्दवान थे|

(3) कृपालु जी बहुत श्रध्दीय पुरुष थे|

(4) कृपालु जी बहुत श्रधादामान पुरुष थे|

Q.89 दिए गए वाक्य में उचित क्रिया विशेषण का चयन करके रिक्त स्थान की पूर्ति करें - जिन शब्दों से क्रिया के घटित होने के समय का पता चले उसे ----------कहते हैं।

(1) स्थानवाचक क्रिया विशेषण

(2) काल वाचक क्रिया विशेषण ✔

(3) रीतिवाचक क्रिया विशेषण

(4) परिमाणवाचक क्रिया विशेषण

Q.90 उचित 'रीतिवाचक निश्चयबोधक क्रियाविशेषण' चुनकर निम्न वाक्य पूर्ण करें- 'तुम परीक्षा में _____ उत्तीर्ण हो जाओगे|'

(1) स्वतः

(2) अवश्य ✔

(3) ऐसे

(4) कदाचित्

Q.91 निम्न में से अतिरिक्त वाक्य का चयन करें।

(1) संगठन में शक्ति होती है।

(2) मेरा स्वास्थ्य अच्छा है। ✔

(3) एकता में बल है।

(4) एक और एक ग्यारह होते है।

Q.92 'अढाई हाथ की ककड़ी नौ हाथ का बीज' लोकोक्ति का उचित अर्थ है-

(1) शारीरिक शक्ति से बुध्दि श्रेष्ठ है

(2) दुःख सुनाने पर ध्यान न देना

(3) निर्धन का भाग्य बुरा होता है

(4) अनहोनी बात ✔

Q.93 'चरित' शब्द का तत्सम शब्द है-

(1) चर्म

(2) रात

(3) चमचा

(4) **चरित्र ✔**

Q.94

निम्नलिखित गद्यांश को ध्यानपूर्वक पढ़कर पूछे गए प्रश्नों के लिए सही विकल्प चुनकर लिखे- तुम्हें क्या करना चाहिए, इसका ठीक-ठीक उत्तर तुम्हीं को देना होगा, दूसरा कोई नहीं दे सकता। कैसा भी विश्वास - पात्र मित्र हो, तुम्हारे इस काम को वह अपने ऊपर नहीं ले सकता। हम अनुभवी लोगों की बातों को आदर के साथ सुनें, बुद्धिमानों की सलाह को कृतज्ञतापूर्वक मानें, पर इस बात को निश्चित समझकर कि हमारे कामों से ही हमारी रक्षा व हमारा पतन होगा। हम अपने विचार और निर्णय की स्वतंत्रता को दृढ़तापूर्वक बनाए रखना चाहिए। जिस पुरुष की दृष्टि सदा नीची रहती है, उसका सिर कभी ऊपर न होगा। नीची दृष्टि रखने से यद्यपि रास्ते पर रहेंगे, पर इस बात को न देखेंगे कि यह रास्ता कहाँ ले जाता है। चित्त की स्वतंत्रता का मतलब चेष्टा की कठोरता या प्रकृति की उग्रता नहीं है। अपने व्यवहार में कोमल रहो और अपने उद्देश्यों को उच्च रखो, इस प्रकार नम्र और उच्चाशय दोनों बनो। अपने मन को कभी मरा हुआ न रखो। जो मनुष्य अपना लक्ष्य जितना ही ऊपर रखता है, उतना ही उसका तीर ऊपर जाता है। स्वामी विवेकानंद कहते हैं कि जीवन में एक ही लक्ष्य बनाओ और अपनी पूरी शक्ति लगाकर जुट जाओ, उस लक्ष्य की प्राप्ति के लिए; सफलता अवश्य आपके कदम चूमेगी। असल में जब आप कोई कर्म करते हैं, तो ज़रूरी नहीं कि आपको सफलता मिल ही जाए, लेकिन आपको असफलताओं से घबराना नहीं चाहिए। अगर बार-बार भी असफलता हाथ आती है, तो भी आपको निराश नहीं होना है। एक हज़ार बार प्रयास करने के बाद यदि आप हारकर गिर पड़े हैं, तो एक बार फिर से उठें और प्रयास करें। हमें लक्ष्य की प्राप्ति तक स्वयं पर विश्वास और आस्था रखनी चाहिए और अपनी सोच को हमेशा सकारात्मक रखना चाहिए।

हमारी रक्षा व पतन किस बात से होगा?

(1) लक्ष्य को नीचा करके

(2) दूसरों का आदर न करके

(3) **हमारे अपने कामों से ✔**

(4) बुद्धिमानों की सलाह न मानकर

Q.95

निम्नलिखित गद्यांश को ध्यानपूर्वक पढ़कर पूछे गए प्रश्नों के लिए सही विकल्प चुनकर लिखे- तुम्हें क्या करना चाहिए, इसका ठीक-ठीक उत्तर तुम्हीं को देना होगा, दूसरा कोई नहीं दे सकता। कैसा भी विश्वास - पात्र मित्र हो, तुम्हारे इस काम को वह अपने ऊपर नहीं ले सकता। हम अनुभवी लोगों की बातों को आदर के साथ सुनें, बुद्धिमानों की सलाह को कृतज्ञतापूर्वक मानें, पर इस बात को निश्चित समझकर कि हमारे कामों से ही हमारी रक्षा व हमारा पतन होगा। हम अपने विचार और निर्णय की स्वतंत्रता को दृढ़तापूर्वक बनाए रखना चाहिए। जिस पुरुष की दृष्टि सदा नीची रहती है, उसका सिर कभी ऊपर न होगा। नीची दृष्टि रखने से यद्यपि रास्ते पर रहेंगे, पर इस बात को न देखेंगे कि यह रास्ता कहाँ ले जाता है। चित्त की स्वतंत्रता का मतलब चेष्टा की कठोरता या प्रकृति की उग्रता नहीं है। अपने व्यवहार में कोमल रहो और अपने उद्देश्यों को उच्च रखो, इस प्रकार नम्र और उच्चाशय दोनों बनो। अपने मन को कभी मरा हुआ न रखो। जो मनुष्य अपना लक्ष्य जितना ही ऊपर रखता है, उतना ही उसका तीर ऊपर जाता है। स्वामी विवेकानंद कहते हैं कि जीवन में एक ही लक्ष्य बनाओ और अपनी पूरी शक्ति लगाकर जुट जाओ, उस लक्ष्य की प्राप्ति के लिए; सफलता अवश्य आपके कदम चूमेगी। असल में जब आप कोई कर्म करते हैं, तो ज़रूरी नहीं कि आपको सफलता मिल ही जाए, लेकिन आपको असफलताओं से घबराना नहीं चाहिए। अगर बार-बार भी असफलता हाथ आती है, तो भी आपको निराश नहीं होना है। एक हज़ार बार प्रयास करने के बाद यदि आप हारकर गिर पड़े हैं, तो एक बार फिर से उठें और प्रयास करें। हमें लक्ष्य की प्राप्ति तक स्वयं पर विश्वास और आस्था रखनी चाहिए और अपनी सोच को हमेशा सकारात्मक रखना चाहिए।

हमें दृढ़तापूर्वक बनाए रखना चाहिए-

(1) अपने व्यवहार को

(2) अच्छे गुणों को

(3) अपने कार्यों को

(4) **अपने विचार और निर्णय की स्वतंत्रता को ✔**

QuickSarkari.com | WhatsApp Channel | Telegram: t.me/quick_sarkari

Q.96

निम्नलिखित गद्यांश को ध्यानपूर्वक पढ़कर पूछे गए प्रश्नों के लिए सही विकल्प चुनकर लिखे- तुम्हें क्या करना चाहिए, इसका ठीक-ठीक उत्तर तुम्हीं को देना होगा, दूसरा कोई नहीं दे सकता। कैसा भी विश्वास - पात्र मित्र हो, तुम्हारे इस काम को वह अपने ऊपर नहीं ले सकता। हम अनुभवी लोगों की बातों को आदर के साथ सुनें, बुद्धिमानों की सलाह को कृतज्ञतापूर्वक मानें, पर इस बात को निश्चित समझकर कि हमारे कामों से ही हमारी रक्षा व हमारा पतन होगा। हम अपने विचार और निर्णय की स्वतंत्रता को दृढ़तापूर्वक बनाए रखना चाहिए। जिस पुरुष की दृष्टि सदा नीची रहती है, उसका सिर कभी ऊपर न होगा। नीची दृष्टि रखने से यद्यपि रास्ते पर रहेंगे, पर इस बात को न देखेंगे कि यह रास्ता कहाँ ले जाता है। चित्त की स्वतंत्रता का मतलब चेष्टा की कठोरता या प्रकृति की उग्रता नहीं है। अपने व्यवहार में कोमल रहो और अपने उद्देश्यों को उच्च रखो, इस प्रकार नम्र और उच्चाशय दोनों बनो। अपने मन को कभी मरा हुआ न रखो। जो मनुष्य अपना लक्ष्य जितना ही ऊपर रखता है, उतना ही उसका तीर ऊपर जाता है। स्वामी विवेकानंद कहते हैं कि जीवन में एक ही लक्ष्य बनाओ और अपनी पूरी शक्ति लगाकर जुट जाओ, उस लक्ष्य की प्राप्ति के लिए; सफलता अवश्य आपके कदम चूमेगी। असल में जब आप कोई कर्म करते हैं, तो ज़रूरी नहीं कि आपको सफलता मिल ही जाए, लेकिन आपको असफलताओं से घबराना नहीं चाहिए। अगर बार-बार भी असफलता हाथ आती है, तो भी आपको निराश नहीं होना है। एक हज़ार बार प्रयास करने के बाद यदि आप हारकर गिर पड़े हैं, तो एक बार फिर से उठें और प्रयास करें। हमें लक्ष्य की प्राप्ति तक स्वयं पर विश्वास और आस्था रखनी चाहिए और अपनी सोच को हमेशा सकारात्मक रखना चाहिए।

मनुष्य को क्या करना चाहिए, इसका ठीक-ठीक उत्तर कौन देगा?

(1) जानवर उत्तर देंगे

(2) **मनुष्य को उत्तर स्वयं देना होगा ✔**

(3) दूसरों से उत्तर मांगना होगा

(4) कोई भी उत्तर नहीं दे सकता

Q.97

निम्नलिखित गद्यांश को ध्यानपूर्वक पढ़कर पूछे गए प्रश्नों के लिए सही विकल्प चुनकर लिखे- तुम्हें क्या करना चाहिए, इसका ठीक-ठीक उत्तर तुम्हीं को देना होगा, दूसरा कोई नहीं दे सकता। कैसा भी विश्वास - पात्र मित्र हो, तुम्हारे इस काम को वह अपने ऊपर नहीं ले सकता। हम अनुभवी लोगों की बातों को आदर के साथ सुनें, बुद्धिमानों की सलाह को कृतज्ञतापूर्वक मानें, पर इस बात को निश्चित समझकर कि हमारे कामों से ही हमारी रक्षा व हमारा पतन होगा। हम अपने विचार और निर्णय की स्वतंत्रता को दृढ़तापूर्वक बनाए रखना चाहिए। जिस पुरुष की दृष्टि सदा नीची रहती है, उसका सिर कभी ऊपर न होगा। नीची दृष्टि रखने से यद्यपि रास्ते पर रहेंगे, पर इस बात को न देखेंगे कि यह रास्ता कहाँ ले जाता है। चित्त की स्वतंत्रता का मतलब चेष्टा की कठोरता या प्रकृति की उग्रता नहीं है। अपने व्यवहार में कोमल रहो और अपने उद्देश्यों को उच्च रखो, इस प्रकार नम्र और उच्चाशय दोनों बनो। अपने मन को कभी मरा हुआ न रखो। जो मनुष्य अपना लक्ष्य जितना ही ऊपर रखता है, उतना ही उसका तीर ऊपर जाता है। स्वामी विवेकानंद कहते हैं कि जीवन में एक ही लक्ष्य बनाओ और अपनी पूरी शक्ति लगाकर जुट जाओ, उस लक्ष्य की प्राप्ति के लिए; सफलता अवश्य आपके कदम चूमेगी। असल में जब आप कोई कर्म करते हैं, तो ज़रूरी नहीं कि आपको सफलता मिल ही जाए, लेकिन आपको असफलताओं से घबराना नहीं चाहिए। अगर बार-बार भी असफलता हाथ आती है, तो भी आपको निराश नहीं होना है। एक हज़ार बार प्रयास करने के बाद यदि आप हारकर गिर पड़े हैं, तो एक बार फिर से उठें और प्रयास करें। हमें लक्ष्य की प्राप्ति तक स्वयं पर विश्वास और आस्था रखनी चाहिए और अपनी सोच को हमेशा सकारात्मक रखना चाहिए।

अपना सिर ऊपर रखने के लिए मनुष्य को क्या करना चाहिए?

(1) नज़रें नीची करके चलना चाहिए।

(2) सिर उठाकर चलना चाहिए।

(3) चोरी करके चलना चाहिए

(4) **अपने उद्देश्य को ऊँचा रखना चाहिए ✔**

Q.98

निम्नलिखित गद्यांश को ध्यानपूर्वक पढ़कर पूछे गए प्रश्नों के लिए सही विकल्प चुनकर लिखे- तुम्हें क्या करना चाहिए, इसका ठीक-ठीक उत्तर तुम्हीं को देना होगा, दूसरा कोई नहीं दे सकता। कैसा भी विश्वास - पात्र मित्र हो, तुम्हारे इस काम को वह अपने ऊपर नहीं ले सकता। हम अनुभवी लोगों की बातों को आदर के साथ सुनें, बुद्धिमानों की सलाह को कृतज्ञतापूर्वक मानें, पर इस बात को निश्चित समझकर कि हमारे कामों से ही हमारी रक्षा व हमारा पतन होगा। हम अपने विचार और निर्णय की स्वतंत्रता को दृढ़तापूर्वक बनाए रखना चाहिए। जिस पुरुष की दृष्टि सदा नीची रहती है, उसका सिर कभी ऊपर न होगा। नीची दृष्टि रखने से यद्यपि रास्ते पर रहेंगे, पर इस बात को न देखेंगे कि यह रास्ता कहाँ ले जाता है। चित्त की स्वतंत्रता का मतलब चेष्टा की कठोरता या प्रकृति की उग्रता नहीं है। अपने व्यवहार में कोमल रहो और अपने उद्देश्यों को उच्च रखो, इस प्रकार नम्र और उच्चाशय दोनों बनो। अपने मन को कभी मरा हुआ न रखो। जो मनुष्य अपना लक्ष्य जितना ही ऊपर रखता है, उतना ही उसका तीर ऊपर जाता है। स्वामी विवेकानंद कहते हैं कि जीवन में एक ही लक्ष्य बनाओ और अपनी पूरी शक्ति लगाकर जुट जाओ, उस लक्ष्य की प्राप्ति के लिए; सफलता अवश्य आपके कदम चूमेगी। असल में जब आप कोई कर्म करते हैं, तो ज़रूरी नहीं कि आपको सफलता मिल ही जाए, लेकिन आपको असफलताओं से घबराना नहीं चाहिए। अगर बार-बार भी असफलता हाथ आती है, तो भी आपको निराश नहीं होना है। एक हज़ार बार प्रयास करने के बाद यदि आप हारकर गिर पड़े हैं, तो एक बार फिर से उठें और प्रयास करें। हमें लक्ष्य की प्राप्ति तक स्वयं पर विश्वास और आस्था रखनी चाहिए और अपनी सोच को हमेशा सकारात्मक रखना चाहिए।

प्रस्तुत गद्यांश का उचित शीर्षक लिखिए।

(1) उच्च विचार

(2) दृढ़चित्त मनुष्य ✔

(3) मनुष्य का ज्ञान

(4) सदा जीवन जीना

Auxiliary Nurse Midwife (ANM)

Q.99 Adenoiditis is the inflammation of the:

एडेनोइडाइटिस किसकी सूजन है?

(1) adrenal cortex and medulla / अधिवृक्क वल्कुट और मध्यांश

(2) middle layer of the eyes / आँखों की मध्य परत

(3) middle layer of the ears / कानों की मध्य परत

(4) nasopharyngeal tonsils / नासाग्रसनी टॉन्सिल ✔

Q.100 What is lacking in the diet of a person with marasmus?

मरास्मस से पीड़ित व्यक्ति के आहार में किसकी कमी होती है?

(1) Only fats and fat-soluble vitamins / केवल वसा और वसा में घुलनशील विटामिन

(2) Only carbohydrate and water-soluble vitamins / केवल कार्बोहाइड्रेट और जल में घुलनशील विटामिन

(3) Carbohydrates, fats, and protein / कार्बोहाइड्रेट, वसा और प्रोटीन ✔

(4) Only vitamins and minerals / केवल विटामिन और खनिज

Q.101 All of the following are the basic tools of measurement in epidemiology, EXCEPT:

निम्नलिखित सभी जानपदिक रोगविज्ञान (एपिडेमियोलॉजी) में मापन के मूल उपकरण हैं, सिवाय:

(1) ratio / अनुपात

(2) proportion / समानुपात

(3) rate / दर

(4) mode / बहुलक ✔

Q.102 The Family Courts Act was enacted in India in _____.

भारत में कुटुंब न्यायालय अधिनियम _____ में अधिनियमित किया गया था।

(1) 1971

(2) 1966

(3) **1984 ✔**

(4) 1952

Q.103 Which condition is also known as intermenstrual bleeding?

किस स्थिति को अंतर-मासिक धर्म रक्तस्राव के रूप में भी जाना जाता है?

(1) **Metrorrhagia / मेट्रोरेजिया ✔**

(2) Oligomenorrhoea / ओलिगोमेनोरिया

(3) Menorrhagia / मेनोरेजिया

(4) Amenorrhoea / एमेनोरिया

Q.104 Which of the following nutrients is essential for body-building and tissue repair?

निम्नलिखित में से कौन-सा पोषक तत्व शरीर-निर्माण और ऊतकों की मरम्मत के लिए आवश्यक है?

(1) **Protein / प्रोटीन ✔**

(2) Fat / वसा

(3) Carbohydrate / कार्बोहाइड्रेट

(4) Vitamins / विटामिन

Q.105 Which of the following dimensions of health focuses on the body's well-being, including regular exercise, healthy eating, adequate sleep and proper care for illnesses or injuries?

स्वास्थ्य का निम्नलिखित में से कौन-सा आयाम शरीर की तंदुरुस्ती पर केंद्रित है, जिसमें नियमित व्यायाम, स्वस्थ भोजन, पर्याप्त नींद और बीमारियों या चोटों की उचित देखभाल शामिल है?

(1) **Physical / शारीरिक ✔**

(2) Mental / मानसिक

(3) Social / सामाजिक

(4) Spiritual / आध्यात्मिक

Q.106 Peripheral neuritis is caused by _____ deficiency.

परिधीय तंत्रिकाशोथ _____ की कमी के कारण होता है।

(1) Vitamin D / विटामिन D

(2) Vitamin A / विटामिन A

(3) Vitamin C / विटामिन C

(4) **Vitamin B6 / विटामिन B6 ✔**

Q.107 Which of the following types of counselling is known as counsellor-centred counselling?

निम्नलिखित में से किस प्रकार के परामर्श को परामर्शदाता-केंद्रित परामर्श के रूप में जाना जाता है?

(1) Patient-centred counselling / रोगी-केंद्रित परामर्श

(2) Permissive counselling / अनुमोदक (परमिसिव) परामर्श

(3) Nondirective counselling / अनिर्देशात्मक परामर्श

(4) **Directive counselling / निर्देशात्मक परामर्श ✔**

Q.108 What are the Panchayati Raj components at the district level?

ज़िला स्तर पर पंचायती राज के घटक क्या हैं?

(1) Gram Panchayat / ग्राम पंचायत

(2) Nyaya Panchayat / न्याय पंचायत

(3) Panchayat Samiti / पंचायत समिति

(4) Zilla Parishad / ज़िला परिषद ✔

Q.109 Which of the following is the anvil-shaped middle ear bone?

निम्नलिखित में से कौन-सी मध्य कर्ण की निहाई (एनविल) के आकार की अस्थि है?

(1) Incus / इनकस ✔

(2) Stapes / स्टेपीज़

(3) Stapedius / स्टेपीडियस

(4) Malleus / मैलियस

Q.110 Participatory Learning and Action encompass all of the following participatory methods and approaches EXCEPT:

सहभागी अधिगम एवं क्रिया (पार्टिसिपेटरी लर्निंग एंड एक्शन) में निम्नलिखित सभी सहभागी विधियाँ और उपागम शामिल हैं, सिवाय:

(1) Participatory Action Research / सहभागी क्रियात्मक अनुसंधान

(2) Rapid Rural Appraisal / त्वरित ग्रामीण मूल्यांकन

(3) Participatory Rural Appraisal / सहभागी ग्रामीण मूल्यांकन

(4) Research Cum Action Project / अनुसंधान सह क्रिया परियोजना ✔

Q.111 Which of the following conditions is also known as decubitus ulcer?

निम्नलिखित में से किस स्थिति को डेक्यूबिटस अल्सर के रूप में भी जाना जाता है?

(1) Cushing ulcer / कुशिंग अल्सर

(2) Curling ulcer / कर्लिंग अल्सर

(3) Mouth sore / मुँह के छाले

(4) Bed sore / शय्या व्रण (बेड सोर) ✔

Q.112 The birth height doubles at the age of:

जन्म के समय की लंबाई किस आयु में दोगुनी हो जाती है?

(1) 6 to 8 years / 6 से 8 वर्ष

(2) 3 to 4 years / 3 से 4 वर्ष ✔

(3) 1 to 2 years / 1 से 2 वर्ष

(4) 6 to 8 months / 6 से 8 महीने

Q.113 What is the full form of BCC in health communication?

स्वास्थ्य संचार में BCC का पूर्ण रूप क्या है?

(1) Behavioural concentrating communication / Behavioural concentrating communication (व्यवहारिक संकेंद्रण संचार)

(2) Behaviour change communication / Behaviour change communication (व्यवहार परिवर्तन संचार) ✔

(3) Boldness change communication / Boldness change communication (साहस परिवर्तन संचार)

(4) Boldness creating communication / Boldness creating communication (साहस सृजन संचार)

Q.114 Which of the following health institutes is designed for tertiary care?

निम्नलिखित में से कौन-से स्वास्थ्य संस्थान तृतीयक देखभाल के लिए बनाए गए हैं?

(1) Community health centres and taluk hospitals / सामुदायिक स्वास्थ्य केंद्र और तालुक अस्पताल

(2) Family health centres and rural hospitals / परिवार स्वास्थ्य केंद्र और ग्रामीण अस्पताल

(3) **Medical colleges and super-specialty hospital / मेडिकल कॉलेज और सुपर-स्पेशियलिटी अस्पताल ✔**

(4) Sub-centres and primary health centres / उप-केंद्र और प्राथमिक स्वास्थ्य केंद्र

Q.115 Which of the following diseases is known as gluten-induced enteropathy?

निम्नलिखित में से किस रोग को ग्लूटेन-प्रेरित आंत्रविकृति (एंटरोपैथी) के रूप में जाना जाता है?

(1) **Celiac disease / सीलिएक रोग ✔**

(2) Porphyria / पोर्फिरिया

(3) Phenylketonuria / फेनिलकीटोनूरिया

(4) Alkaptonuria / एल्काप्टोनूरिया

Q.116 Iodine supplementation is encouraged to prevent which of the following health problems?

निम्नलिखित में से किस स्वास्थ्य समस्या की रोकथाम के लिए आयोडीन पूरकता को प्रोत्साहित किया जाता है?

(1) **Goitre / घेंघा (गॉइटर) ✔**

(2) Acromegaly / एक्रोमेगाली

(3) Dwarfism / बौनापन

(4) Acromicria / एक्रोमाइक्रिया

Q.117 All of the following are the Panchayati Raj components of the village level, EXCEPT:

निम्नलिखित सभी ग्राम स्तर पर पंचायती राज के घटक हैं, सिवाय:

(1) **Panchayat Samiti / पंचायत समिति ✔**

(2) Nyaya Panchayat / न्याय पंचायत

(3) Gram Sabha / ग्राम सभा

(4) Gram Panchayat / ग्राम पंचायत

Q.118 In the Indian rural healthcare system, one Primary Health Centre typically serves as a referral unit for how many sub-centres?

भारतीय ग्रामीण स्वास्थ्य देखभाल प्रणाली में, एक प्राथमिक स्वास्थ्य केंद्र सामान्यतः कितने उप-केंद्रों के लिए रेफरल इकाई के रूप में कार्य करता है?

(1) **6 sub-centres / 6 उप-केंद्र ✔**

(2) 10 sub-centres / 10 उप-केंद्र

(3) 8 sub-centres / 8 उप-केंद्र

(4) 4 sub-centres / 4 उप-केंद्र

Q.119 Cross ventilation is achieved by:

क्रॉस वेंटिलेशन (आर-पार संवातन) किसके द्वारा प्राप्त किया जाता है?

(1) sealing all windows to maintain temperature / तापमान बनाए रखने के लिए सभी खिड़कियों को बंद करके

(2) **placing doors and windows on opposite sides of a room to allow fresh air to flow / ताज़ी हवा के प्रवाह के लिए कमरे के आमने-सामने की दिशाओं में दरवाज़े और खिड़कियाँ लगाकर ✔**

(3) recirculating indoor air without fresh air intake / ताज़ी हवा के प्रवेश के बिना घर के अंदर की हवा को पुनःपरिचालित करके

(4) using exhaust fans to remove air / हवा को बाहर निकालने के लिए एग्ज़ॉस्ट पंखों का उपयोग करके

Q.120 Which of the following types of latrines is suitable for excreta disposal in temporary camps?
अस्थायी शिविरों में मल निपटान के लिए निम्नलिखित में से किस प्रकार का शौचालय उपयुक्त है?

(1) Bore hole latrine / बोर होल शौचालय ✔
(2) Water-seal latrine / जल-सील शौचालय
(3) Septic tank / सेप्टिक टैंक
(4) Aqua privy / एक्वा प्रिवी

Q.121 HIV-infected blood test tubes should be disposed of in which colour-coded bags?
HIV-संक्रमित रक्त की परखनलियों का निपटान किस रंग-कोड वाले थैलों में किया जाना चाहिए?

(1) Black biohazard bags / काले बायोहैज़र्ड थैले
(2) Red biohazard bags / लाल बायोहैज़र्ड थैले
(3) Blue biohazard bags / नीले बायोहैज़र्ड थैले
(4) Yellow biohazard bags / पीले बायोहैज़र्ड थैले ✔

Q.122 All of the following illnesses are transmitted through contaminated water, EXCEPT:
निम्नलिखित सभी बीमारियाँ दूषित जल के माध्यम से फैलती हैं, सिवाय:

(1) dysentery / पेचिश
(2) giardiasis / जिआर्डियासिस
(3) cholera / हैजा
(4) rabies / रेबीज़ ✔

Q.123 According to Sigmund Freud's theory of psychosexual development, the psychosexual stage of a person from 6 years to puberty is:
सिगमंड फ्रायड के मनोलैंगिक विकास के सिद्धांत के अनुसार, 6 वर्ष से यौवनारंभ तक व्यक्ति की मनोलैंगिक अवस्था है:

(1) anal stage / गुदा अवस्था
(2) phallic stage / लिंग प्रधान (फैलिक) अवस्था
(3) genital stage / जननांग अवस्था
(4) latency stage / प्रसुप्ति अवस्था ✔

Q.124 Which of the following behaviours is typically associated with a person experiencing delusions?
निम्नलिखित में से कौन-सा व्यवहार सामान्यतः भ्रम (डेल्यूज़न) से ग्रस्त व्यक्ति से संबंधित होता है?

(1) Repetitive blinking of eyes rapidly without any intention or reasoning behind it / बिना किसी इरादे या कारण के बार-बार तेज़ी से आँखें झपकाना
(2) Expressing unrealistic beliefs that they are being persecuted or controlled / अवास्तविक विश्वास व्यक्त करना कि उन्हें सताया जा रहा है या नियंत्रित किया जा रहा है ✔
(3) Repeatedly washing hands or checking if the door is locked / बार-बार हाथ धोना या यह जाँचना कि दरवाज़ा बंद है या नहीं
(4) Withdrawing from social activities / सामाजिक गतिविधियों से दूर रहना

Q.125 All of the following diseases may be spread by contaminated needles, EXCEPT:
निम्नलिखित सभी रोग दूषित सुइयों द्वारा फैल सकते हैं, सिवाय:

(1) HIV
(2) Hepatitis B / हेपेटाइटिस B
(3) Hepatitis C / हेपेटाइटिस C
(4) Hepatitis A / हेपेटाइटिस A ✔

Q.126 Which of the following tools is used to assess pressure ulcer risk?

दाब व्रण (प्रेशर अल्सर) के जोखिम का आकलन करने के लिए निम्नलिखित में से किस उपकरण का उपयोग किया जाता है?

(1) Bishop score / बिशप स्कोर

(2) Glasgow scale / ग्लासगो स्केल

(3) Apgar score / अपगार स्कोर

(4) **Braden scale / ब्रेडेन स्केल ✔**

Q.127 What sample is used in determining vanillyl mantellic acid to diagnose pheochromocytoma?

फियोक्रोमोसाइटोमा के निदान के लिए वैनिलिल मैंडेलिक अम्ल का निर्धारण करने में किस नमूने का उपयोग किया जाता है?

(1) **Urine / मूत्र ✔**

(2) Blood / रक्त

(3) CSF

(4) Sputum / थूक (स्पुटम)

Q.128 Lyme disease is transmitted by the bite of a:

लाइम रोग किसके काटने से फैलता है?

(1) rat / चूहा

(2) sandfly / सैंडफ्लाई

(3) mosquito / मच्छर

(4) **ticks / किलनी (टिक्स) ✔**

Q.129 Which of the following emergency drugs is commonly used to treat acute bronchospasm?

निम्नलिखित में से किस आपातकालीन दवा का उपयोग सामान्यतः तीव्र श्वसनी-आकर्ष (ब्रोंकोस्पाज़्म) के उपचार के लिए किया जाता है?

(1) Insulin / इंसुलिन

(2) **Deriphylline / डेरीफिलिन ✔**

(3) Adrenaline / एड्रेनालाईन

(4) Magnesium Sulphate / मैग्नीशियम सल्फेट

Q.130 As per WHO, _____ is the prime natural resource, which every individual should get pure, to maintain the equilibrium between man and environment.

WHO के अनुसार, _____ प्रमुख प्राकृतिक संसाधन है, जो मनुष्य और पर्यावरण के बीच संतुलन बनाए रखने के लिए प्रत्येक व्यक्ति को शुद्ध रूप में मिलना चाहिए।

(1) **water / जल ✔**

(2) sunlight / सूर्य का प्रकाश

(3) air / वायु

(4) soil / मिट्टी

Q.131 Which coloured bin is used to collect dry and recyclable wastes as per municipal waste disposal guidelines?

नगरपालिका अपशिष्ट निपटान दिशानिर्देशों के अनुसार सूखे और पुनर्चक्रण योग्य अपशिष्ट को एकत्र करने के लिए किस रंग के कूड़ेदान का उपयोग किया जाता है?

(1) Red / लाल

(2) Yellow / पीला

(3) **Blue / नीला ✔**

(4) Green / हरा

Q.132 What is the incubation period of hepatitis B?

हेपेटाइटिस B की उद्भवन अवधि क्या है?

(1) 30 to 180 days / 30 से 180 दिन ✔

(2) 1 to 4 days / 1 से 4 दिन

(3) 16 to 28 days / 16 से 28 दिन

(4) 5 to 15 days / 5 से 15 दिन

Q.133 The National Programme for the Health Care of the Elderly (NPHCE) was launched by the Ministry of Health & Family Welfare in:

स्वास्थ्य एवं परिवार कल्याण मंत्रालय द्वारा राष्ट्रीय वृद्धजन स्वास्थ्य देखभाल कार्यक्रम (NPHCE) कब शुरू किया गया था?

(1) 2004-2005

(2) 2000-2001

(3) 2010-2011 ✔

(4) 2007-2008

Q.134 As per the National Immunization Schedule, the first dose of Japanese encephalitis vaccine is administered at _____.

राष्ट्रीय टीकाकरण अनुसूची के अनुसार, जापानी एन्सेफलाइटिस टीके की पहली खुराक _____ पर दी जाती है।

(1) 16 to 24 months / 16 से 24 महीने

(2) 6 to 8 months / 6 से 8 महीने

(3) 9 to 12 months / 9 से 12 महीने ✔

(4) 3 to 5 months / 3 से 5 महीने

Q.135 Which of the following diseases is also known as beaver fever?

निम्नलिखित में से किस रोग को बीवर फीवर के रूप में भी जाना जाता है?

(1) Shigella / शिगेला

(2) Salmonella / साल्मोनेला

(3) Giardiasis / जिआर्डियासिस ✔

(4) Typhoid / टाइफाइड

Q.136 Which of the following preservatives is added in the green colour-coded vacutainer?

हरे रंग-कोड वाले वैक्यूटेनर में निम्नलिखित में से कौन-सा परिरक्षक मिलाया जाता है?

(1) EDTA

(2) Sodium fluoride / सोडियम फ्लोराइड

(3) Heparin / हेपरिन ✔

(4) Sodium citrate / सोडियम साइट्रेट

Q.137 What is the route of administration of the MMR vaccine?

MMR टीके को देने का मार्ग क्या है?

(1) Intravenously / अंतःशिरा

(2) Intradermally / अंतस्त्वचीय

(3) Subcutaneously / अधस्त्वचीय ✔

(4) Orally / मौखिक

Q.138 All of the following are examples of contagious diseases, EXCEPT:
निम्नलिखित सभी संक्रामक रोगों के उदाहरण हैं, सिवाय:

(1) tuberculosis / क्षयरोग
(2) asthma / दमा ✔
(3) scabies / खुजली (स्केबीज़)
(4) leprosy / कुष्ठरोग

Q.139 The actions and measures that inhibit the emergence of risk factors in the form of environmental, economic, social, and behavioural conditions and cultural patterns of living are included under which of the following levels of prevention?
ऐसे कार्य और उपाय, जो पर्यावरणीय, आर्थिक, सामाजिक और व्यवहारगत परिस्थितियों तथा जीवन के सांस्कृतिक प्रतिरूपों के रूप में जोखिम कारकों के उद्भव को रोकते हैं, रोकथाम के निम्नलिखित में से किस स्तर के अंतर्गत शामिल हैं?

(1) Tertiary prevention / तृतीयक रोकथाम
(2) Secondary prevention / द्वितीयक रोकथाम
(3) Primary prevention / प्राथमिक रोकथाम
(4) Primordial prevention / आदिम (प्रिमोर्डियल) रोकथाम ✔

Q.140 Which of the following disorders is characterised by the abnormal protrusion of the upper part of the stomach or other internal organs through the diaphragm into the chest cavity?
निम्नलिखित में से कौन-सा विकार आमाशय के ऊपरी भाग या अन्य आंतरिक अंगों के डायाफ्राम से होकर वक्ष गुहा में असामान्य रूप से उभरने की विशेषता वाला है?

(1) Umbilical hernia / नाभि हर्निया
(2) Inguinal hernia / वंक्षण हर्निया
(3) Hiatal hernia / हायटल हर्निया ✔
(4) Incisional hernia / चीरा हर्निया (इन्सिज़नल हर्निया)

Q.141 Which of the following anti-tubercular medications mainly damages the eighth cranial nerve?
निम्नलिखित में से कौन-सी क्षयरोधी दवा मुख्य रूप से आठवीं कपाल तंत्रिका को क्षति पहुँचाती है?

(1) Streptomycin / स्ट्रेप्टोमाइसिन ✔
(2) Isoniazid / आइसोनियाज़िड
(3) Pyrazinamide / पाइराज़िनामाइड
(4) Ethambutol / एथमब्यूटोल

Q.142 A transient ischemic attack is generally considered as a warning sign of a future _____.
क्षणिक अरक्तता दौरे (ट्रांज़िएंट इस्केमिक अटैक) को सामान्यतः भविष्य के _____ का चेतावनी संकेत माना जाता है।

(1) cardiac arrest / हृदय गति रुकना (कार्डियक अरेस्ट)
(2) stroke / स्ट्रोक ✔
(3) myocardial infarction / हृद्पेशी रोधगलन (मायोकार्डियल इन्फार्क्शन)
(4) heart failure / हृदय विफलता

Q.143 All of the following medications is used in the treatment of malaria, EXCEPT:
निम्नलिखित सभी दवाओं का उपयोग मलेरिया के उपचार में किया जाता है, सिवाय:

(1) primaquine / प्राइमाक्वीन
(2) quinine / क्विनीन
(3) chloroquine / क्लोरोक्वीन
(4) dapsone / डैपसोन ✔

Q.144 All of the following medications are included in the Drug Kit-B of the sub-centre, EXCEPT:
निम्नलिखित सभी दवाएँ उप-केंद्र की ड्रग किट-B में शामिल हैं, सिवाय:

(1) Tab. Cotrimoxazole / टैब. कोट्रिमोक्साज़ोल ✔
(2) Tab. Mebendazole / टैब. मेबेंडाज़ोल
(3) Tab. Methylergometrine / टैब. मिथाइलअर्गोमेट्रीन
(4) Tab. Dicyclomine / टैब. डाइसाइक्लोमीन

Q.145 In the medication chart of a patient, the nurse found Tab. Augmentin QID. How many times will the tablet be administered in a day?
एक रोगी के दवा चार्ट में नर्स को Tab. Augmentin QID लिखा मिला। टैबलेट दिन में कितनी बार दी जाएगी?

(1) Six / छह
(2) Three / तीन
(3) Two / दो
(4) Four / चार ✔

Q.146 Which of the following conditions can result in fever?
निम्नलिखित में से किस स्थिति के परिणामस्वरूप बुखार हो सकता है?

(1) Dehydration / निर्जलीकरण ✔
(2) Drinking cold water / ठंडा पानी पीना
(3) Lack of sleep / नींद की कमी
(4) Drinking hot beverages / गर्म पेय पीना

Q.147 What is a medical term for difficulty breathing or shortness of breath that only occurs when a person is lying down or in a recumbent position and is relieved by sitting or standing up?
साँस लेने में कठिनाई या साँस फूलना, जो केवल तब होता है जब व्यक्ति लेटा हुआ हो या शयन अवस्था में हो और बैठने या खड़े होने पर दूर हो जाता है, के लिए चिकित्सकीय शब्द क्या है?

(1) Tachypnoea / टैकिप्निया
(2) Platypnoea / प्लैटिप्निया
(3) Orthopnoea / ऑर्थोप्निया ✔
(4) Bradypnoea / ब्रैडिप्निया

Q.148 What is the action of the drug diclofenac sodium?
डाइक्लोफेनाक सोडियम दवा की क्रिया क्या है?

(1) Antifungals / कवकरोधी
(2) Antivirals / विषाणुरोधी
(3) Analgesics / पीड़ाहारी (एनाल्जेसिक) ✔
(4) Antipyretics / ज्वरनाशी (एंटीपायरेटिक)

Q.149 What is the normal mid-upper arm circumference for toddlers aged 1-5 years?
1-5 वर्ष की आयु के छोटे बच्चों के लिए सामान्य मध्य-ऊपरी बाँह की परिधि क्या है?

(1) Greater than 7.5 cm / 7.5 cm से अधिक
(2) Greater than 11.5 cm / 11.5 cm से अधिक
(3) Greater than 9.5 cm / 9.5 cm से अधिक
(4) Greater than 13.5 cm / 13.5 cm से अधिक ✔

QuickSarkari.com | WhatsApp Channel | Telegram: t.me/quick_sarkari

Q.150 Which disease is also known as Enteric fever?
किस रोग को आंत्र ज्वर (एंटेरिक फीवर) के रूप में भी जाना जाता है?

(1) Dengue / डेंगू
(2) Polio / पोलियो
(3) Measles / खसरा
(4) **Typhoid / टाइफाइड ✔**

Q.151 What is the main cause of the cholera epidemic?
हैजा महामारी का मुख्य कारण क्या है?

(1) Bite of infected rats / संक्रमित चूहों का काटना
(2) **Contaminated water supply / दूषित जल आपूर्ति ✔**
(3) Bite of infected mosquitoes / संक्रमित मच्छरों का काटना
(4) Infected blood transfusion / संक्रमित रक्त आधान

Q.152 The recommended dose of albendazole for the treatment of worm infestation between the ages of 2 and 19 years by the Government of India is _____.
भारत सरकार द्वारा 2 से 19 वर्ष की आयु के बीच कृमि संक्रमण के उपचार के लिए एल्बेंडाज़ोल की अनुशंसित खुराक _____ है।

(1) **400 mg ✔**
(2) 600 mg
(3) 1000 mg
(4) 200 mg

Q.153 Which of the following blood tests is encouraged regularly if a patient is taking anticoagulant medication such as warfarin?
यदि कोई रोगी वारफेरिन जैसी थक्कारोधी दवा ले रहा है, तो निम्नलिखित में से कौन-सा रक्त परीक्षण नियमित रूप से कराने के लिए प्रोत्साहित किया जाता है?

(1) **PT and INR / PT और INR ✔**
(2) RBC and MCV / RBC और MCV
(3) MCH and MCHC / MCH और MCHC
(4) WBC and Hb / WBC और Hb

Q.154 Which strategy involves the restriction on the movement of people, intended to prevent the spread of disease?
किस रणनीति में रोग के प्रसार को रोकने के उद्देश्य से लोगों की आवाजाही पर प्रतिबंध लगाना शामिल है?

(1) Immunisation / प्रतिरक्षण
(2) Fortification / पौष्टिकीकरण (फोर्टिफिकेशन)
(3) Rehabilitation / पुनर्वास
(4) **Quarantine / संगरोध (क्वारंटीन) ✔**

Q.155 The number of deaths in a population during a given time or place is expressed as:
किसी दिए गए समय या स्थान पर एक जनसंख्या में होने वाली मृत्युओं की संख्या को किस रूप में व्यक्त किया जाता है?

(1) Morbidity rate / रुग्णता दर
(2) Natality rate / जन्म दर
(3) **Mortality rate / मृत्यु दर ✔**
(4) Fertility rate / प्रजनन दर

Q.156 What is the mechanism of action of Atorvastatin?

एटोरवास्टेटिन की क्रियाविधि क्या है?

(1) Hypolipidemic agent / हाइपोलिपिडेमिक एजेंट (लिपिड कम करने वाला) ✔

(2) Blood thinner / रक्त पतला करने वाला

(3) Antihypertensive agent / उच्चरक्तचापरोधी एजेंट

(4) Hypoglycaemic agent / हाइपोग्लाइसेमिक एजेंट (रक्त शर्करा कम करने वाला)

Q.157 Advise a patient with neurological disorder to include a warm-up period of _____ before starting active exercises.

तंत्रिका संबंधी विकार वाले रोगी को सक्रिय व्यायाम शुरू करने से पहले _____ की वार्म-अप अवधि शामिल करने की सलाह दें।

(1) 20 minutes / 20 मिनट

(2) 15 minutes / 15 मिनट

(3) 5 minutes / 5 मिनट ✔

(4) 30 minutes / 30 मिनट

Q.158 The drugs used to control fever are known as:

बुखार को नियंत्रित करने के लिए उपयोग की जाने वाली दवाओं को क्या कहा जाता है?

(1) analgesics / पीड़ाहारी (एनाल्जेसिक)

(2) antipyretics / ज्वरनाशी (एंटीपायरेटिक) ✔

(3) antitussives / कासरोधी (एंटीट्यूसिव)

(4) antiemetics / वमनरोधी (एंटीएमेटिक)

Q.159 Which of the following is an essential practice for maintaining menstrual hygiene?

निम्नलिखित में से कौन-सा मासिक धर्म स्वच्छता बनाए रखने के लिए एक आवश्यक अभ्यास है?

(1) Changing sanitary pads every 4 to 6 hours / हर 4 से 6 घंटे में सैनिटरी पैड बदलना ✔

(2) Wearing dark colour clothes during menstruation / मासिक धर्म के दौरान गहरे रंग के कपड़े पहनना

(3) Staying in separate room during menstruation period / मासिक धर्म की अवधि के दौरान अलग कमरे में रहना

(4) Consuming bland diet during menstruation / मासिक धर्म के दौरान फीका आहार लेना

Q.160 Which of the following groups of organisms are causative factors for oral thrush in bottle fed babies?

बोतल से दूध पीने वाले शिशुओं में मुख के थ्रश (ओरल थ्रश) के लिए निम्नलिखित में से कौन-से जीव समूह कारक हैं?

(1) Protozoa / प्रोटोज़ोआ

(2) Spirochete / स्पाइरोकीट

(3) Bacteria / जीवाणु

(4) Fungus / कवक ✔

Q.161 Where does the Placenta develop from?

अपरा (प्लेसेंटा) का विकास किससे होता है?

(1) Primary mesoderm / प्राथमिक मध्यजनस्तर (मीसोडर्म)

(2) Secondary mesoderm / द्वितीयक मध्यजनस्तर (मीसोडर्म)

(3) Chorion frondosum / कोरियॉन फ्रॉन्डोसम ✔

(4) Syncytiotrophoblast / सिन्साइटियोट्रोफोब्लास्ट

Q.162 Minimal care at first referral centre/PHC level includes all of the following, EXCEPT:

प्रथम रेफरल केंद्र/PHC स्तर पर न्यूनतम देखभाल में निम्नलिखित सभी शामिल हैं, सिवाय:

(1) there should be regular ANC clinic once a week on fixed days / निश्चित दिनों पर सप्ताह में एक बार नियमित ANC क्लिनिक होना चाहिए

(2) **managing high risk cases at PHC and referring cases requiring cesarean section / PHC पर उच्च जोखिम वाले मामलों का प्रबंधन करना और सिज़ेरियन सेक्शन की आवश्यकता वाले मामलों को रेफर करना ✔**

(3) register all pregnant women at first trimester of pregnancy / सभी गर्भवती महिलाओं का गर्भावस्था की पहली तिमाही में पंजीकरण करना

(4) screening of all high-risk cases at PHC for referral to higher centre / उच्च केंद्र में रेफर करने के लिए PHC पर सभी उच्च जोखिम वाले मामलों की जाँच करना

Q.163 Morbidity among mothers that occurs due to pregnancy and its management during the antepartum, intrapartum and postpartum periods is called _____.

प्रसवपूर्व, प्रसवकालीन और प्रसवोत्तर अवधियों के दौरान गर्भावस्था और उसके प्रबंधन के कारण माताओं में होने वाली रुग्णता को _____ कहा जाता है।

(1) **obstetric morbidity / प्रसूति रुग्णता ✔**

(2) gynecological morbidity / स्त्रीरोग संबंधी रुग्णता

(3) high risk morbidity / उच्च जोखिम रुग्णता

(4) contraceptive morbidity / गर्भनिरोधक रुग्णता

Q.164 The normal body temperature of a newborn baby is between:

नवजात शिशु के शरीर का सामान्य तापमान किसके बीच होता है?

(1) **36°C - 37°C ✔**

(2) 30°C - 31°C

(3) 34°C - 35°C

(4) 32°C - 33°C

Q.165 The cause of premature rupture of membrane that occurs beyond the 37th week, but before the onset of labour, is _____.

37वें सप्ताह के बाद, लेकिन प्रसव पीड़ा शुरू होने से पहले होने वाले झिल्ली के समयपूर्व फटने का कारण _____ है।

(1) big head of the foetus / भ्रूण का बड़ा सिर

(2) full dilatation of the cervix / गर्भाशय ग्रीवा का पूर्ण विस्फारण

(3) **cervical incompetence / गर्भाशय ग्रीवा की अक्षमता ✔**

(4) oligohydrominas / ओलिगोहाइड्रोमिनास

Q.166 The quadrangular area bounded anteriorly by bregma, posteriorly by lambda and laterally by lines passing through parietal eminences on fetal skull is called _____.

भ्रूण की खोपड़ी पर आगे की ओर ब्रेग्मा, पीछे की ओर लैम्ब्डा और पार्श्व में पार्श्विका उभारों से होकर गुज़रने वाली रेखाओं द्वारा घिरे चतुर्भुजाकार क्षेत्र को _____ कहा जाता है।

(1) brow / ब्रो (भौंह)

(2) **vertex / वर्टेक्स (शीर्ष) ✔**

(3) face / फेस (चेहरा)

(4) sinciput / सिनसिपट

Q.167 Which of the following is a severe form of diabetic foot disease where the bones in the foot and ankle become damaged, leading to deformities and ulcers?

निम्नलिखित में से कौन-सा मधुमेह संबंधी पैर रोग का एक गंभीर रूप है, जिसमें पैर और टखने की हड्डियाँ क्षतिग्रस्त हो जाती हैं, जिससे विकृतियाँ और अल्सर हो जाते हैं?

(1) Club foot / क्लब फुट

(2) **Charcot Foot / शारकोट फुट ✔**

(3) Syme foot / साइम फुट

(4) Chopart foot / शोपार्ट फुट

Q.168 Which of the following is the most accurate and widely used chart to calculate the total body surface area affected by a burn injury?

जलने की चोट से प्रभावित शरीर के कुल सतह क्षेत्रफल की गणना करने के लिए निम्नलिखित में से कौन-सा सबसे सटीक और व्यापक रूप से उपयोग किया जाने वाला चार्ट है?

(1) **Lund and Browder chart / लुंड और ब्राउडर चार्ट ✔**

(2) Brooke formula / ब्रूक फॉर्मूला

(3) Parkland chart / पार्कलैंड चार्ट

(4) Evan formula / इवान फॉर्मूला

Q.169 Which growth parameter is the most critical in detecting early signs of malnutrition in infants?

शिशुओं में कुपोषण के प्रारंभिक लक्षणों का पता लगाने में कौन-सा वृद्धि मापदंड सबसे महत्वपूर्ण है?

(1) Mid-upper arm circumference / मध्य-ऊपरी बाँह की परिधि

(2) **Weight-for-age / आयु के अनुसार भार ✔**

(3) Head circumference / सिर की परिधि

(4) Height-for-age / आयु के अनुसार लंबाई

Q.170 Which of the following bandages is best suitable for an injured forearm?

चोटग्रस्त अग्रबाहु के लिए निम्नलिखित में से कौन-सी पट्टी सबसे उपयुक्त है?

(1) Roller bandage / रोलर पट्टी

(2) Elastic bandage / इलास्टिक पट्टी

(3) **Triangular bandage / त्रिकोणीय पट्टी ✔**

(4) Adhesive bandage / चिपकने वाली पट्टी

Q.171 According to the World Health Organization (WHO), for how long should infants be exclusively breastfed to achieve optimal growth and development?

विश्व स्वास्थ्य संगठन (WHO) के अनुसार, इष्टतम वृद्धि और विकास प्राप्त करने के लिए शिशुओं को कितने समय तक केवल स्तनपान कराया जाना चाहिए?

(1) **6 months / 6 महीने ✔**

(2) 9 months / 9 महीने

(3) 12 months / 12 महीने

(4) 3 months / 3 महीने

Q.172 Which of the following is an example of an aminoglycoside antibiotic?
निम्नलिखित में से कौन-सा एमिनोग्लाइकोसाइड प्रतिजैविक का एक उदाहरण है?

(1) Gentamicin / जेंटामाइसिन ✔
(2) Penicillin / पेनिसिलिन
(3) Cephalosporins / सेफालोस्पोरिन
(4) Carbapenems / कार्बापेनेम

Q.173 What is the safest way to remove a foreign body from the eye?
आँख से बाहरी वस्तु निकालने का सबसे सुरक्षित तरीका क्या है?

(1) Press on the eyelid / पलक पर दबाव डालना
(2) Use a cotton swab / रुई के फाहे का उपयोग करना
(3) Flush with clean water or saline / साफ़ पानी या सलाइन से धोना ✔
(4) Rub the eye gently / आँख को धीरे से रगड़ना

Q.174 Ultrasound scan during the first trimester helps detect all of the following, EXCEPT:
पहली तिमाही के दौरान अल्ट्रासाउंड स्कैन निम्नलिखित सभी का पता लगाने में सहायता करता है, सिवाय:

(1) gross foetal anomalies / भ्रूण की स्थूल विसंगतियाँ
(2) multiple pregnancy / बहु गर्भावस्था
(3) ectopic pregnancy / अस्थानिक गर्भावस्था
(4) polyhydramnios / पॉलीहाइड्रेमनियोस ✔

Q.175 Which of the following is the primary cause of most of the acute respiratory tract infections in children?
बच्चों में अधिकांश तीव्र श्वसन पथ संक्रमणों का प्राथमिक कारण निम्नलिखित में से कौन-सा है?

(1) Autoimmune diseases / स्व-प्रतिरक्षी रोग
(2) Poor nutrition / खराब पोषण
(3) Viral infections / विषाणु संक्रमण ✔
(4) Fungal infections / कवक संक्रमण

Q.176 Match Column A with Column B and select the correct sequence from the following.
Column A | Column B
1. Pouch of Douglas | A. Cervix
2. Portio Vaginalis | B. Fallopian Tubes
3. Transportation of Gametes | C. Ovary
4. Steroidogenesis | D. Posterior Fornix
कॉलम A का कॉलम B से मिलान कीजिए और निम्नलिखित में से सही क्रम का चयन कीजिए।
कॉलम A | कॉलम B
1. पाउच ऑफ़ डगलस | A. गर्भाशय ग्रीवा
2. पोर्शियो वेजाइनैलिस | B. फैलोपियन ट्यूब
3. युग्मकों का परिवहन | C. अंडाशय
4. स्टेरॉयडोजेनेसिस | D. पश्च फॉर्निक्स

(1) 1-D, 2-A, 3-B, 4-C ✔
(2) 1-C, 2-B, 3-A, 4-D
(3) 1-B, 2-C, 3-D, 4-A
(4) 1-A, 2-D, 3-C, 4-B

Q.177 A female client visits OPD with a history of missing her periods by 10 days. On detailed history taken she reveals her previous periods were normal and morning sickness is also present. As a midwife, what will be your next course of action?

एक महिला ग्राहक 10 दिनों से मासिक धर्म न आने के इतिहास के साथ OPD में आती है। विस्तृत इतिहास लेने पर वह बताती है कि उसके पिछले मासिक धर्म सामान्य थे और प्रातःकालीन मिचली (मॉर्निंग सिकनेस) भी मौजूद है। एक मिडवाइफ के रूप में, आपकी अगली कार्यवाही क्या होगी?

(1) Counsel her not to worry / उसे चिंता न करने की सलाह दें

(2) Refer her to a gynaecologist / उसे स्त्रीरोग विशेषज्ञ के पास रेफर करें

(3) **Get urine pregnancy test done / मूत्र गर्भावस्था परीक्षण कराएँ ✔**

(4) Ask her to wait till she has her next period / उसे अगले मासिक धर्म तक प्रतीक्षा करने को कहें

Q.178 Which technique is used to assist the delivery of the legs and feet in a breech presentation?

ब्रीच प्रस्तुति में पैरों और पादों के प्रसव में सहायता के लिए किस तकनीक का उपयोग किया जाता है?

(1) Schultze maneuver / शुल्ट्ज़ मैनूवर

(2) Heimlich's maneuver / हेमलिच मैनूवर

(3) McRoberts maneuver / मैकरॉबर्ट्स मैनूवर

(4) **Pinard's maneuver / पिनार्ड मैनूवर ✔**

Q.179 Which of the following helps in acquiring knowledge, skills, values, and attitudes that enable individuals to make informed decisions and lead better lives?

निम्नलिखित में से कौन-सा ज्ञान, कौशल, मूल्य और अभिवृत्तियाँ प्राप्त करने में सहायता करता है, जो व्यक्तियों को सोच-समझकर निर्णय लेने और बेहतर जीवन जीने में सक्षम बनाते हैं?

(1) Money / धन

(2) Status / प्रतिष्ठा

(3) **Education / शिक्षा ✔**

(4) Gender / लिंग

Q.180 As per RCH services, which of the following is an important component of intra-natal care?

RCH सेवाओं के अनुसार, निम्नलिखित में से कौन-सा प्रसवकालीन देखभाल का एक महत्वपूर्ण घटक है?

(1) Family planning services to prevent unplanned pregnancy / अनियोजित गर्भावस्था को रोकने के लिए परिवार नियोजन सेवाएँ

(2) **Maintains three cleans / तीन स्वच्छताओं (थ्री क्लीन्स) को बनाए रखना ✔**

(3) Strengthen the referral system / रेफरल प्रणाली को सुदृढ़ करना

(4) Safe abortion services / सुरक्षित गर्भपात सेवाएँ

Q.181 Oxytocin affects the contraction of the:

ऑक्सीटोसिन किसके संकुचन को प्रभावित करता है?

(1) stomach and kidney / आमाशय और वृक्क

(2) liver and gall bladder / यकृत और पित्ताशय

(3) **uterus and breasts / गर्भाशय और स्तन ✔**

(4) heart and lungs / हृदय और फेफड़े

Q.182 Which of the following missions aim to improve the Sex Ratio by ensuring education for girls?
निम्नलिखित में से कौन-सा मिशन बालिकाओं के लिए शिक्षा सुनिश्चित करके लिंगानुपात में सुधार करने का लक्ष्य रखता है?

(1) Lakhpati Didi Scheme / लखपति दीदी योजना
(2) Drone Didi Scheme / ड्रोन दीदी योजना
(3) **The Beti Bachao Beti Padhao (BBBP) scheme / बेटी बचाओ बेटी पढ़ाओ (BBBP) योजना ✔**
(4) Mission Indradhanush / मिशन इंद्रधनुष

Q.183 _____ is an operation to make a perforation on the foetal head, to evacuate the contents followed by extraction of the foetus.
_____ भ्रूण के सिर में छिद्र करने, उसकी अंतर्वस्तु को बाहर निकालने और उसके बाद भ्रूण को निकालने की एक शल्यक्रिया है।

(1) Cleidotomy / क्लीडोटॉमी
(2) Symphysiotomy / सिम्फिसियोटॉमी
(3) **Craniotomy / क्रेनियोटॉमी ✔**
(4) Evisceration / इविसरेशन

Q.184 The role of ANM in rural areas under safe motherhood initiative is to _____.
सुरक्षित मातृत्व पहल के अंतर्गत ग्रामीण क्षेत्रों में ANM की भूमिका _____ है।

(1) encourage early breast feeding / शीघ्र स्तनपान को प्रोत्साहित करना
(2) encourage the use of family planning methods / परिवार नियोजन विधियों के उपयोग को प्रोत्साहित करना
(3) **improve institutional delivery / संस्थागत प्रसव में सुधार करना ✔**
(4) register pregnancies / गर्भावस्थाओं का पंजीकरण करना

Q.185 As per RCH intervention care, _____ is one of the components of safe motherhood.
RCH हस्तक्षेप देखभाल के अनुसार, _____ सुरक्षित मातृत्व के घटकों में से एक है।

(1) safe delivery / सुरक्षित प्रसव
(2) treatment of PPH / PPH का उपचार
(3) newborn assessment / नवजात शिशु का आकलन
(4) **early registration of pregnancy / गर्भावस्था का शीघ्र पंजीकरण ✔**

Q.186 How are STIs caused?
STI किस कारण से होते हैं?

(1) **Transmitted by sexual contact / यौन संपर्क द्वारा संचरित ✔**
(2) Air borne transmission / वायुजनित संचरण
(3) Due to the curse of God / ईश्वर के श्राप के कारण
(4) Vector borne transmission / रोगवाहक जनित संचरण

Q.187 A nurse needs to calculate the indent for a medication for 30,000 people, with a prevalence rate 3%; the consumption rate per case is 5 units. Which of the following is the correct indent calculation?
एक नर्स को 30,000 लोगों के लिए किसी दवा का इंडेंट (माँग पत्र) परिकलित करना है, जिसमें व्यापकता दर 3% है; प्रति मामले उपभोग दर 5 इकाई है। निम्नलिखित में से कौन-सा सही इंडेंट परिकलन है?

(1) **4500 units / 4500 इकाई ✔**
(2) 1500 units / 1500 इकाई
(3) 9000 units / 9000 इकाई
(4) 3000 units / 3000 इकाई

Q.188 An infection of the genital tract at any time between the onset of rupture of membranes or labour and till 42 days after delivery or abortion is called:

झिल्लियों के फटने या प्रसव पीड़ा की शुरुआत से लेकर प्रसव या गर्भपात के 42 दिनों बाद तक किसी भी समय होने वाले जननांग पथ के संक्रमण को क्या कहा जाता है?

(1) systemic infection / प्रणालीगत संक्रमण

(2) genital infection / जननांग संक्रमण

(3) **puerperal sepsis / प्रसूति पूतिता (प्यूरपेरल सेप्सिस) ✔**

(4) urinary tract infection / मूत्र पथ संक्रमण

Q.189 A midwife is taking the history of a woman who is admitted to the labour room with complaints of pain in the abdomen. The history of labour includes all of the following EXCEPT:

एक मिडवाइफ एक महिला का इतिहास ले रही है, जिसे पेट में दर्द की शिकायत के साथ प्रसव कक्ष में भर्ती किया गया है। प्रसव के इतिहास में निम्नलिखित सभी शामिल हैं, सिवाय:

(1) time of onset of pain / दर्द शुरू होने का समय

(2) recently ingested food / हाल ही में खाया गया भोजन

(3) history of leaking per vagina / योनि से रिसाव का इतिहास

(4) **pattern of weight gain during pregnancy / गर्भावस्था के दौरान वज़न बढ़ने का पैटर्न ✔**

Q.190 Identify the surgical method of induction of abortion.

गर्भपात प्रेरित करने की शल्य विधि की पहचान कीजिए।

(1) Methotrexate and misoprostol / मेथोट्रेक्सेट और मिसोप्रोस्टोल

(2) Dinoprostone / डाइनोप्रोस्टोन

(3) Mifepristone and misoprostol / मिफेप्रिस्टोन और मिसोप्रोस्टोल

(4) **Dilatation and evacuation / विस्फारण और निष्कासन (डाइलेटेशन एंड इवैक्यूएशन) ✔**

Q.191 A pregnant woman with high blood sugar is commonly known as a/an:

उच्च रक्त शर्करा वाली गर्भवती महिला को सामान्यतः क्या कहा जाता है?

(1) perinatal mother / प्रसवकालीन माता

(2) **gestational diabetic mother / गर्भकालीन मधुमेह माता ✔**

(3) gravida mother / ग्रेविडा माता

(4) antenatal mother / प्रसवपूर्व माता

Q.192 _____ is used to treat eclampsia.

एक्लेम्पसिया के उपचार के लिए _____ का उपयोग किया जाता है।

(1) **Magnesium sulphate injection / मैग्नीशियम सल्फेट इंजेक्शन ✔**

(2) Oxytocin injection / ऑक्सीटोसिन इंजेक्शन

(3) Metronidazole tablet / मेट्रोनिडाज़ोल टैबलेट

(4) Misoprostol tablet / मिसोप्रोस्टोल टैबलेट

Q.193 The _____ health programme aims to eliminate TB in India.

_____ स्वास्थ्य कार्यक्रम का लक्ष्य भारत में TB का उन्मूलन करना है।

(1) National Rabies Control Programme(NRCP) / राष्ट्रीय रेबीज़ नियंत्रण कार्यक्रम (NRCP)

(2) National Vector Borne Diseases Control Programme (NVBDCP) / राष्ट्रीय वेक्टर जनित रोग नियंत्रण कार्यक्रम (NVBDCP)

(3) **National Tuberculosis Elimination Programme (NTEP) / राष्ट्रीय क्षयरोग उन्मूलन कार्यक्रम (NTEP) ✔**

(4) National Leprosy Eradication Programme (NLEP) / राष्ट्रीय कुष्ठ उन्मूलन कार्यक्रम (NLEP)

Q.194 Which of the following is an abnormal position of the vertex?
निम्नलिखित में से कौन-सी वर्टेक्स की एक असामान्य स्थिति है?

(1) Face presentation / फेस प्रस्तुति
(2) Breech presentation / ब्रीच प्रस्तुति
(3) Occiput posterior position / ऑक्सिपट पोस्टीरियर स्थिति ✔
(4) Occiput anterior position / ऑक्सिपट एंटीरियर स्थिति

Q.195 Which of the following is NOT a common post-partum minor ailment?
निम्नलिखित में से कौन-सी प्रसवोत्तर सामान्य छोटी परेशानी नहीं है?

(1) Peritoneal pain / पेरिटोनियल दर्द
(2) Depression / अवसाद
(3) Constipation / कब्ज़
(4) Happiness / प्रसन्नता ✔

Q.196 Which of the following drugs is usually given to control bleeding in PPH?
PPH में रक्तस्राव को नियंत्रित करने के लिए सामान्यतः निम्नलिखित में से कौन-सी दवा दी जाती है?

(1) Magnesium sulphate / मैग्नीशियम सल्फेट
(2) Morphine / मॉर्फिन
(3) Oxytocin / ऑक्सीटोसिन ✔
(4) Gentamycin / जेंटामाइसिन

Q.197 Which of the following is a barrier method of contraception?
निम्नलिखित में से कौन-सी गर्भनिरोध की एक अवरोधक विधि है?

(1) Female sterilisation / महिला नसबंदी
(2) Body temperature method / शरीर तापमान विधि
(3) Oral contraceptive pills / मौखिक गर्भनिरोधक गोलियाँ
(4) Condom / कंडोम ✔

Q.198 The standard dose for anti-D immune globulin is administered to the mother following childbirth is:
प्रसव के बाद माता को दी जाने वाली एंटी-D प्रतिरक्षा ग्लोब्युलिन की मानक खुराक है:

(1) 500 mcg
(2) 400 mcg
(3) 550 mcg
(4) 300 mcg ✔

Answer Key / उत्तर कुंजी

1 3	**2** 1	**3** 1	**4** 3	**5** 3	**6** 3	**7** 1	**8** 2	**9** 4	**10** 3	**11** 2	**12** 1	**13** 3	**14** 1	**15** 3
16 2	**17** 1	**18** 4	**19** 4	**20** 4	**21** 2	**22** 4	**23** 4	**24** 2	**25** 3	**26** 2	**27** 2	**28** 3	**29** 2	**30** 4
31 3	**32** 3	**33** 1	**34** 3	**35** 1	**36** 1	**37** 4	**38** 1	**39** 2	**40** 3	**41** 2	**42** 3	**43** 2	**44** 2	**45** 3
46 2	**47** 2	**48** 1	**49** 4	**50** 2	**51** 4	**52** 1	**53** 2	**54** 2	**55** 1	**56** 3	**57** 3	**58** 3	**59** 4	**60** 3
61 2	**62** 2	**63** 1	**64** 3	**65** 2	**66** 1	**67** 2	**68** 4	**69** 2	**70** 2	**71** 2	**72** 3	**73** 2	**74** 4	**75** 4

76 1	**77** 1	**78** 2	**79** 3	**80** 4	**81** 4	**82** 2	**83** 3	**84** 2	**85** 4	**86** 3	**87** 4	**88** 1	**89** 2	**90** 2
91 2	**92** 4	**93** 4	**94** 3	**95** 4	**96** 2	**97** 4	**98** 2	**99** 4	**100** 3	**101** 4	**102** 3	**103** 1	**104** 1	**105** 1
106 4	**107** 4	**108** 4	**109** 1	**110** 4	**111** 4	**112** 2	**113** 2	**114** 3	**115** 1	**116** 1	**117** 1	**118** 1	**119** 2	**120** 1
121 4	**122** 4	**123** 4	**124** 2	**125** 4	**126** 4	**127** 1	**128** 4	**129** 2	**130** 1	**131** 3	**132** 1	**133** 3	**134** 3	**135** 3
136 3	**137** 3	**138** 2	**139** 4	**140** 3	**141** 1	**142** 2	**143** 4	**144** 1	**145** 4	**146** 1	**147** 3	**148** 3	**149** 4	**150** 4
151 2	**152** 1	**153** 1	**154** 4	**155** 3	**156** 1	**157** 3	**158** 2	**159** 1	**160** 4	**161** 3	**162** 2	**163** 1	**164** 1	**165** 3
166 2	**167** 2	**168** 1	**169** 2	**170** 3	**171** 1	**172** 1	**173** 3	**174** 4	**175** 3	**176** 1	**177** 3	**178** 4	**179** 3	**180** 2
181 3	**182** 3	**183** 3	**184** 3	**185** 4	**186** 1	**187** 1	**188** 3	**189** 4	**190** 4	**191** 2	**192** 1	**193** 3	**194** 3	**195** 4
196 3	**197** 4	**198** 4												

Quick Sarkari

GOVT. OF NCT OF DELHI
Delhi Subordinate Services Selection Board
FC-18, Institutional Area, Karkardooma, Delhi – 110092.
www.dsssb.delhigovt.nic.in

Participant ID	
Participant Name	
Test Center Name	iON Digital Zone iDZ 1 Sector 62
Test Date	11/04/2025
Test Time	9:00 AM - 11:00 AM
Subject	Auxiliary Nurse Midwife

Section : General intelligence and Reasoning Ability

Q.1 Read the given statements and conclusions carefully. Assuming that the information given in the statements is true, even if it appears to be at variance with commonly known facts, decide which of the given conclusion(s) logically follow(s) from the statements.

Statements:
Some pins are tins.
Some tins are bins.

Conclusions:
(I) Some pins are bins.
(II) All bins are tins.

Ans
✗ 1. Only conclusion (II) follows.
✗ 2. Both conclusions (I) and (II) follow.
✓ 3. Neither conclusion (I) nor (II) follows.
✗ 4. Only conclusion (I) follows.

Question ID : **44100976863**
Option 1 ID : **441009305571**
Option 2 ID : **441009305570**
Option 3 ID : **441009305569**
Option 4 ID : **441009305572**

QuickSarkari.com | WhatsApp Channel | Telegram: t.me/quick_sarkari

Q.2 Refer to the following letter and symbol series and answer the question that follows. Counting to be done from left to right only.

(Left) P @ Q # R $ S & T U % V ^ W & X ^ Y $ Z # Ω A Φ B (Right)

If all the letters are dropped from the series, which of the following will be eighth from the right?

Ans
✔ 1. %
✘ 2. $
✘ 3. ^
✘ 4. &

Question ID : **44100976816**
Option 1 ID : **441009305381**
Option 2 ID : **441009305384**
Option 3 ID : **441009305383**
Option 4 ID : **441009305382**

Q.3 Refer to the following number and symbol series and answer the question that follows. Counting to be done from left to right only.

(Left) 1 & 9 2 6 @ 3 % 7 Ω & 5 # £ 2 8 4 * (Right)

How many such symbols are there, each of which is immediately preceded by an odd number but not immediately followed by an odd number?

Ans
✔ 1. Two
✘ 2. One
✘ 3. None
✘ 4. Three

Question ID : **44100976817**
Option 1 ID : **441009305387**
Option 2 ID : **441009305386**
Option 3 ID : **441009305385**
Option 4 ID : **441009305388**

Q.4 Each of P, Q, R, S, T, U and X has an exam on a different day of a week, starting from Monday and ending on Sunday of the same week. P has an exam on Thursday. Only one person has an exam before T. U has an exam on one of the days after T and on one of the days before P. X has an exam on the day immediately before Q. Only one person has an exam between X and S. How many people have exams between Q and U?

Ans
✘ 1. One
✘ 2. Four
✔ 3. Two
✘ 4. Three

Question ID : **44100976849**
Option 1 ID : **441009305516**
Option 2 ID : **441009305513**
Option 3 ID : **441009305515**
Option 4 ID : **441009305514**

QuickSarkari.com | WhatsApp Channel | Telegram: t.me/quick_sarkari

Q.5 Refer to the following number series and answer the question that follows (all numbers are single-digit numbers only). Counting to be done from left to right only.

(Left) 5 2 6 4 3 2 5 6 4 2 7 1 8 3 2 8 9 1 7 3 5 6 1 (Right)

How many such odd digits are there, each of which is immediately preceded by an even digit and also immediately followed by an odd digit?

Ans
- ✗ 1. 1
- ✗ 2. 4
- ✓ 3. 2
- ✗ 4. 3

Question ID : **44100976819**
Option 1 ID : **441009305394**
Option 2 ID : **441009305396**
Option 3 ID : **441009305393**
Option 4 ID : **441009305395**

Q.6 If 1 is subtracted from each odd digit of the number 4528936, find the product of the digits that are repeated more than once in the new number thus formed.

Ans
- ✗ 1. 8
- ✗ 2. 24
- ✓ 3. 64
- ✗ 4. 40

Question ID : **44100976808**
Option 1 ID : **441009305350**
Option 2 ID : **441009305352**
Option 3 ID : **441009305351**
Option 4 ID : **441009305349**

Q.7 Based on the English alphabetical order, three of the following four letter-cluster pairs are alike in a certain way and thus form a group. Which letter-cluster pair DOES NOT belong to that group?
(Note: The odd one out is not based on the number of consonants/vowels or their position in the letter-cluster.)

Ans
- ✓ 1. HF – KI
- ✗ 2. CA – GE
- ✗ 3. LJ – PN
- ✗ 4. US – YW

Question ID : **44100976831**
Option 1 ID : **441009305444**
Option 2 ID : **441009305441**
Option 3 ID : **441009305442**
Option 4 ID : **441009305443**

Q.8 Select the option figure that will replace the question mark (?) in the figure given below to complete the pattern.

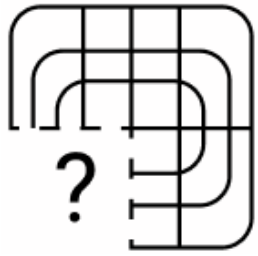

Ans

✗ 1. 

✓ 2. 

✗ 3. 

✗ 4. 

Question ID : **44100976916**
Option 1 ID : **441009305783**
Option 2 ID : **441009305781**
Option 3 ID : **441009305784**
Option 4 ID : **441009305782**

Q.9 Seven people, L, M, N, O, W, X and Y, are sitting in a row, facing north.
Only three people sit between O and X. M sits to the immediate left of X. No one sits to the right of Y. Only two people sit between Y and M. W sits to the immediate right of L.
How many people sit between N and W?

Ans
✗ 1. One
✗ 2. Four
✗ 3. Two
✓ 4. Three

Question ID : **44100976873**
Option 1 ID : **441009305609**
Option 2 ID : **441009305612**
Option 3 ID : **441009305610**
Option 4 ID : **441009305611**

QuickSarkari.com | WhatsApp Channel | Telegram: t.me/quick_sarkari

Q.10 In a certain code language,

'A = B' means 'A is the daughter of B',
'A $ B' means 'A is the brother of B',
'A @ B' means 'A is the wife of B',
'A * B' means ' A is the father of B.'

How is E related to J if 'E = R @ Y $ H * J'?

Ans
1. Father's sister's daughter
2. Sister's daughter
3. Father's brother's daughter
4. Brother's daughter

Question ID : **44100976909**
Option 1 ID : **441009305755**
Option 2 ID : **441009305756**
Option 3 ID : **441009305754**
Option 4 ID : **441009305753**

Q.11 Seven boxes, A, B, C, I, J, K and Y, are kept one over the other, but not necessarily in the same order. K is kept second from the top. Only four boxes are kept between A and K. C is kept at one of the positions above K. Only Y is kept between K and J. I is kept immediately below J. How many boxes are kept between B and C?

Ans
1. Three
2. Four
3. One
4. Two

Question ID : **44100976854**
Option 1 ID : **441009305534**
Option 2 ID : **441009305533**
Option 3 ID : **441009305536**
Option 4 ID : **441009305535**

Q.12 What will come in the place of the question mark (?) in the following equation, if '+' and '−' are interchanged and '×' and '÷' are interchanged?

$88 \times 8 - 36 \div 5 + 15 = ?$

Ans
1. 176
2. 182
3. 178
4. 187

Question ID : **44100976788**
Option 1 ID : **441009305269**
Option 2 ID : **441009305271**
Option 3 ID : **441009305270**
Option 4 ID : **441009305272**

QuickSarkari.com | WhatsApp Channel | Telegram: t.me/quick_sarkari

Q.13 Select the number from among the given options that can replace the question mark (?) in the following series.

52 79 105 130 154 ?

Ans
✗ 1. 186
✗ 2. 183
✓ 3. 177
✗ 4. 180

Question ID : **44100976809**
Option 1 ID : **441009305353**
Option 2 ID : **441009305354**
Option 3 ID : **441009305356**
Option 4 ID : **441009305355**

Q.14 Based on the English alphabetical order, three of the following four letter-cluster pairs are alike in a certain way and thus form a group. Which letter-cluster pair DOES NOT belong to that group?
(Note: The odd one out is not based on the number of consonants/vowels or their position in the letter-cluster.)

Ans
✓ 1. PA - TE
✗ 2. DL - HQ
✗ 3. OE - SJ
✗ 4. YK - CP

Question ID : **44100976837**
Option 1 ID : **441009305467**
Option 2 ID : **441009305465**
Option 3 ID : **441009305466**
Option 4 ID : **441009305468**

Q.15 Select the set in which the numbers are related in the same way as are the numbers of the following sets.
(NOTE: Operations should be performed on the whole numbers, without breaking down the numbers into its constituent digits. E.g. 13 – Operations on 13 such as adding / subtracting /multiplying etc. to 13 can be performed. Breaking down 13 into 1 and 3 and then performing mathematical operations on 1 and 3 is not allowed)
13 - 12 - 25
1 - 5 - 6

Ans
✗ 1. 22 - 9 - 32
✗ 2. 9 - 7 - 15
✓ 3. 4 - 19 - 23
✗ 4. 18 - 4 - 23

Question ID : **44100976801**
Option 1 ID : **441009305324**
Option 2 ID : **441009305321**
Option 3 ID : **441009305323**
Option 4 ID : **441009305322**

QuickSarkari.com | WhatsApp Channel | Telegram: t.me/quick_sarkari

Q.16 WHIT is related to AMMY in a certain way based on the English alphabetical order. In the same way, MBYN is related to QGCS. To which of the given options is YQKC related, following the same logic?

Ans
✗ 1. JOHV
✓ 2. CVOH
✗ 3. JOUY
✗ 4. JVHO

Question ID : **44100976861**
Option 1 ID : **441009305563**
Option 2 ID : **441009305561**
Option 3 ID : **441009305564**
Option 4 ID : **441009305562**

Q.17 In a certain code language, 'WARS' is coded as '9163' and 'ROAS' is coded as '3189'. What is the code for 'O' in the given code language?

Ans
✓ 1. 8
✗ 2. 3
✗ 3. 9
✗ 4. 1

Question ID : **44100976860**
Option 1 ID : **441009305559**
Option 2 ID : **441009305557**
Option 3 ID : **441009305560**
Option 4 ID : **441009305558**

Q.18 In the following triads, each group of letters is related to the subsequent one following a certain logic. Select from the given options, the one which follows the same logic.

OPEN – ONPE– EPNO
GAME – GEAM - MAEG

Ans
✗ 1. KIDS – SDIK – ISDK
✗ 2. NEAR– RAEN– REAN
✗ 3. GAIN – INGA – IGNA
✓ 4. FEAT – FTEA – AETF

Question ID : **44100976883**
Option 1 ID : **441009305652**
Option 2 ID : **441009305649**
Option 3 ID : **441009305650**
Option 4 ID : **441009305651**

QuickSarkari.com | WhatsApp Channel | Telegram: t.me/quick_sarkari

Q.19 Seven persons J, K, L, M, N, O and P are standing in a straight row (not necessarily in the same order) for a flag hoisting ceremony on Republic Day, facing north. Only two persons stand between O and P, and P stands second to the left of K. M stands third to the left of L. N stands exactly between P and K, and K stands at the extreme right end of the row. Who among the following stands at the extreme left of the row?

Ans
✗ 1. O
✗ 2. N
✗ 3. L
✓ 4. M

Question ID : **44100976868**
Option 1 ID : **441009305589**
Option 2 ID : **441009305592**
Option 3 ID : **441009305591**
Option 4 ID : **441009305590**

Q.20 In a certain code language, 'MILD' is coded as '1057' and 'MILK' is coded as '0756'. What is the code for 'K' in the given code language?

Ans
✗ 1. 0
✗ 2. 5
✗ 3. 7
✓ 4. 6

Question ID : **44100976898**
Option 1 ID : **441009305711**
Option 2 ID : **441009305709**
Option 3 ID : **441009305712**
Option 4 ID : **441009305710**

Section : General Awareness

Q.1 In what type of waves do individual particles of the medium move in a direction parallel to the direction of the wave?

Ans
✗ 1. Electromagnetic waves
✓ 2. Longitudinal waves
✗ 3. Mechanical waves
✗ 4. Transverse waves

Question ID : **44100987246**
Option 1 ID : **441009346776**
Option 2 ID : **441009346778**
Option 3 ID : **441009346777**
Option 4 ID : **441009346775**

Q.2 Why are probiotics beneficial for human beings?

Ans
✗ 1. Bone strength
✗ 2. Skin hydration
✗ 3. Vision improvement
✓ 4. Digestive health

Question ID : **44100987219**
Option 1 ID : **441009346668**
Option 2 ID : **441009346670**
Option 3 ID : **441009346667**
Option 4 ID : **441009346669**

Q.3 Select the INCORRECT pair with reference to conversion of one form of energy into the other form, and their examples.

Ans
✗ 1. Mechanical energy to electrical energy – Wind turbine
✗ 2. Electrical energy to heat energy – Convection heaters
✗ 3. Electrical energy to mechanical energy – Washing machine
✓ 4. Heat energy to electrical energy – Solar cell

Question ID : **44100987242**
Option 1 ID : **441009346759**
Option 2 ID : **441009346761**
Option 3 ID : **441009346760**
Option 4 ID : **441009346762**

Q.4 In which sport did Neeraj Chopra win a silver medal at the Paris 2024 Olympics?

Ans
✗ 1. Shot put
✓ 2. Javelin throw
✗ 3. Discus throw
✗ 4. High jump

Question ID : **44100987194**
Option 1 ID : **441009346568**
Option 2 ID : **441009346567**
Option 3 ID : **441009346569**
Option 4 ID : **441009346570**

Q.5 What is the minimum age requirement to qualify for election of the President of India?

Ans
✗ 1. 45 years
✗ 2. 30 years
✓ 3. 35 years
✗ 4. 40 years

Question ID : **44100987265**
Option 1 ID : **441009346854**
Option 2 ID : **441009346851**
Option 3 ID : **441009346852**
Option 4 ID : **441009346853**

QuickSarkari.com | WhatsApp Channel | Telegram: t.me/quick_sarkari

Q.6 Which Indian city is often referred to as the 'Cherrapunji of the South' due to high rainfall?

Ans
✗ 1. Munnar
✓ 2. Agumbe
✗ 3. Ooty
✗ 4. Coorg

Question ID : **441009129703**
Option 1 ID : **441009515305**
Option 2 ID : **441009515306**
Option 3 ID : **441009515307**
Option 4 ID : **441009515308**

Q.7 Who among the following appoints the Chairman and other members of a State Public Service Commission?

Ans
✗ 1. Prime Minister of India
✓ 2. Governor of the State
✗ 3. Chief Minister of the State
✗ 4. President of India

Question ID : **44100987266**
Option 1 ID : **441009346857**
Option 2 ID : **441009346855**
Option 3 ID : **441009346858**
Option 4 ID : **441009346856**

Q.8 Which country was given Vice-Presidentship of the International Organization of Aids to Marine Navigation (IALA) during its first General Assembly held in February 2025 in Singapore?

Ans
✗ 1. Japan
✗ 2. Vietnam
✓ 3. India
✗ 4. China

Question ID : **441009129684**
Option 1 ID : **441009515229**
Option 2 ID : **441009515231**
Option 3 ID : **441009515230**
Option 4 ID : **441009515232**

Q.9 What does 'credit' mean in banking terms?

Ans
✗ 1. A bank employee's salary
✓ 2. Money borrowed from a bank
✗ 3. Savings kept in a locker
✗ 4. Profit earned by the bank

Question ID : **44100987276**
Option 1 ID : **441009346897**
Option 2 ID : **441009346895**
Option 3 ID : **441009346896**
Option 4 ID : **441009346898**

QuickSarkari.com | WhatsApp Channel | Telegram: t.me/quick_sarkari

Q.10 The autobiography 'My Life and Times' was written by the renowned Indian musician:

Ans
- ✗ 1. Kelucharan Mohapatra
- ✗ 2. Alarmel Valli
- ✗ 3. Mallika Sarabhai
- ✓ 4. Ravi Shankar

Question ID : **44100987205**
Option 1 ID : **441009346613**
Option 2 ID : **441009346611**
Option 3 ID : **441009346612**
Option 4 ID : **441009346614**

Q.11 Who was the first headmistress of the country's first girls' school in Pune and devoted her life to educating Shudras and Ati-Shudras?

Ans
- ✗ 1. Kamini Roy
- ✗ 2. Sarojini Naidu
- ✓ 3. Savitri Bai Phule
- ✗ 4. Anandi Gopal Joshi

Question ID : **441009129718**
Option 1 ID : **441009515367**
Option 2 ID : **441009515368**
Option 3 ID : **441009515365**
Option 4 ID : **441009515366**

Q.12 Under which of the following processes does the government sell its securities to the private sector?

Ans
- ✗ 1. Recession
- ✗ 2. Inflation
- ✓ 3. Disinvestment
- ✗ 4. Investment

Question ID : **44100987286**
Option 1 ID : **441009346937**
Option 2 ID : **441009346938**
Option 3 ID : **441009346936**
Option 4 ID : **441009346935**

Q.13 Which of the following statement(s) is/are correct in the context of Buddhist architecture?
Stupas are places to venerate holy relics of Buddha.
Viharas are used for the living quarters of the monks.
Anda, Harmika and Chhatra were the main elements of the stupa.

Ans
- ✓ 1. i, ii and iii
- ✗ 2. Only ii and iii
- ✗ 3. Only iii
- ✗ 4. Only i and iii

Question ID : **44100987216**
Option 1 ID : **441009346655**
Option 2 ID : **441009346658**
Option 3 ID : **441009346656**
Option 4 ID : **441009346657**

QuickSarkari.com | WhatsApp Channel | Telegram: t.me/quick_sarkari

Q.14 Which of the following Articles of the Indian Constitution provides for the establishment of the Union Public Service Commission (UPSC)?

Ans
✗ 1. Article 330
✗ 2. Article 320
✓ 3. Article 315
✗ 4. Article 340

Question ID : **44100987269**
Option 1 ID : **441009346869**
Option 2 ID : **441009346868**
Option 3 ID : **441009346867**
Option 4 ID : **441009346870**

Q.15 What was the primary focus of the India AI Mission, approved by the Cabinet on 7 March 2024?

Ans
✓ 1. To strengthen the AI innovation ecosystem in India
✗ 2. To promote AI research in educational institutions
✗ 3. To fund AI startups across the country
✗ 4. To establish AI technology centres in every State

Question ID : **44100987189**
Option 1 ID : **441009346548**
Option 2 ID : **441009346547**
Option 3 ID : **441009346549**
Option 4 ID : **441009346550**

Q.16 Which of the following rivers forms the picturesque Dhuandhar Waterfall near Jabalpur?

Ans
✓ 1. Narmada
✗ 2. Godavari
✗ 3. Chambal
✗ 4. Kaveri

Question ID : **441009129699**
Option 1 ID : **441009515289**
Option 2 ID : **441009515291**
Option 3 ID : **441009515290**
Option 4 ID : **441009515292**

Q.17 In which year was the Bihar Provincial Kisan Sabha first convened?

Ans
✗ 1. 1931
✗ 2. 1922
✗ 3. 1919
✓ 4. 1929

Question ID : **441009129715**
Option 1 ID : **441009515356**
Option 2 ID : **441009515354**
Option 3 ID : **441009515353**
Option 4 ID : **441009515355**

Q.18 Union Budget 2025-26 has proposed to set up the 'National Institute of Food Technology, Entrepreneurship and Management' in which of the following states?

Ans
✔ 1. Bihar
✘ 2. Madhya Pradesh
✘ 3. Odisha
✘ 4. Assam

Question ID : **441009129692**
Option 1 ID : **441009515263**
Option 2 ID : **441009515261**
Option 3 ID : **441009515264**
Option 4 ID : **441009515262**

Q.19 Commerce & Industry Minister Piyush Goyal won from which Lok Sabha seat in the 2024 Lok Sabha Elections?

Ans
✘ 1. Mumbai North Central
✔ 2. Mumbai North
✘ 3. Mumbai South Central
✘ 4. Mumbai South

Question ID : **44100987199**
Option 1 ID : **441009346590**
Option 2 ID : **441009346588**
Option 3 ID : **441009346589**
Option 4 ID : **441009346587**

Q.20 Which vitamins are commonly known by the names Riboflavin and Niacin?

Ans
✘ 1. Vitamin B6 and Vitamin B12
✘ 2. Vitamin B1 and Vitamin C
✔ 3. Vitamin B2 and Vitamin B3
✘ 4. Vitamin B5 and Vitamin K

Question ID : **44100987229**
Option 1 ID : **441009346710**
Option 2 ID : **441009346707**
Option 3 ID : **441009346708**
Option 4 ID : **441009346709**

Section : **Arithmetical and Numerical Ability**

Q.1 A trader gains 40% by selling an article after two successive discounts of 60% and 37% on its marked price. If the cost price of the article is increased by 55%, then what single discount should he now give on the same marked price to get the same profit percentage as earlier?

Ans
1. 55.33%
2. 60.94%
3. 56.75%
4. 71.95%

Question ID : **44100976226**
Option 1 ID : **441009303163**
Option 2 ID : **441009303160**
Option 3 ID : **441009303161**
Option 4 ID : **441009303162**

Q.2 Kamal travels from City A to City B. If Kamal drives his car at $\frac{1}{6}$ of l

Find the time (in minutes) that Kamal would have taken to travel from

Ans
1. 10
2. 5
3. 4
4. 7

Question ID : **44100976283**
Option 1 ID : **441009303391**
Option 2 ID : **441009303390**
Option 3 ID : **441009303388**
Option 4 ID : **441009303389**

Q.3 Three partners invested in a business in the ratio 3 : 8 : 1. They invested their capitals for 5 months, 1 month and 10 months, respectively. What was the ratio of their profits?

Ans
1. 13 : 8 : 10
2. 15 : 8 : 10
3. 14 : 8 : 10
4. 17 : 8 : 10

Question ID : **44100976265**
Option 1 ID : **441009303318**
Option 2 ID : **441009303316**
Option 3 ID : **441009303317**
Option 4 ID : **441009303319**

QuickSarkari.com | WhatsApp Channel | Telegram: t.me/quick_sarkari

Q.4 Evaluate:

$$\sqrt{\left(74+\sqrt{\left((44+\sqrt{\left(20+\sqrt{\left(17+\sqrt{(64)}\right)}\right)}\right)}\right)}$$

Ans
1. 5
2. 9
3. 11
4. 10

Question ID : **44100976299**
Option 1 ID : **441009303455**
Option 2 ID : **441009303452**
Option 3 ID : **441009303453**
Option 4 ID : **441009303454**

Q.5 An open box is made of wood 5 cm thick. Its external dimensions are 2.55 m, 2.15 m and 1.05 m. What is the total cost of painting the inner surface of the box at ₹100 per cm^2?

Ans
1. ₹2,63,800
2. ₹1,64,800
3. ₹1,44,500
4. ₹1,30,350

Question ID : **44100976315**
Option 1 ID : **441009303518**
Option 2 ID : **441009303517**
Option 3 ID : **441009303516**
Option 4 ID : **441009303519**

QuickSarkari.com | WhatsApp Channel | Telegram: t.me/quick_sarkari

Q.6 The number of sport bicycles sold by a shopkeeper in five years is shown in the following bar graph. Study the bar graph and answer the question that follows.

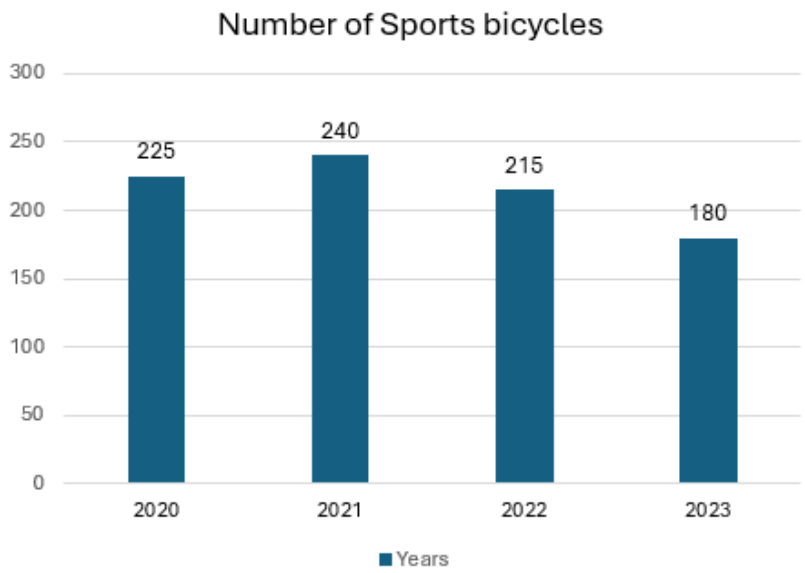

What is the percentage of decrease in the sale of sport bicycles in the year 2023 over that in the previous year? (Rounded off to two decimal places)

Ans
✗ 1. 22.22%
✓ 2. 16.28%
✗ 3. 26.67%
✗ 4. 12.34%

Question ID : **44100976273**
Option 1 ID : **441009303350**
Option 2 ID : **441009303348**
Option 3 ID : **441009303351**
Option 4 ID : **441009303349**

Q.7 The population of a district is 3,80,000, out of which 2,00,000 are males. 51% of the population is literate. If 42% males are literate, then what percentage of females are literate?

Ans
✗ 1. 62%
✓ 2. 61%
✗ 3. 60%
✗ 4. 64%

Question ID : **44100976189**
Option 1 ID : **441009303015**
Option 2 ID : **441009303012**
Option 3 ID : **441009303014**
Option 4 ID : **441009303013**

QuickSarkari.com | WhatsApp Channel | Telegram: t.me/quick_sarkari

Q.8 The ratio of milk and water in a 51 litre mixture is 9 : 8. Find the quantity of water (in litres) to be added to the mixture in order to make this ratio 1 : 1.

Ans
✔ 1. 3
✘ 2. 6
✘ 3. 12
✘ 4. 8

Question ID : **44100976259**
Option 1 ID : **441009303292**
Option 2 ID : **441009303295**
Option 3 ID : **441009303293**
Option 4 ID : **441009303294**

Q.9 Atul purchased 10 kg of rice at the rate of ₹36 per kg and 40 kg of rice at ₹46 per kg. He sold the whole mixture at the rate of ₹43.5 per kg. Find his loss (in ₹).

Ans
✘ 1. 33
✘ 2. 30
✘ 3. 20
✔ 4. 25

Question ID : **44100976179**
Option 1 ID : **441009302975**
Option 2 ID : **441009302973**
Option 3 ID : **441009302974**
Option 4 ID : **441009302972**

Q.10 Kartik completed 60% of a work in 12 days and then Bhushan joined him from the 13th day, and they together finished the remaining work in 4 days. How long would Bhushan alone take to do the whole work?

Ans
✘ 1. 18 days
✔ 2. 20 days
✘ 3. 16 days
✘ 4. 12 days

Question ID : **44100976304**
Option 1 ID : **441009303474**
Option 2 ID : **441009303475**
Option 3 ID : **441009303473**
Option 4 ID : **441009303472**

QuickSarkari.com | WhatsApp Channel | Telegram: t.me/quick_sarkari

Q.11 Sapna invested ₹22,600 on simple interest, partly at 12% per annum and partly at 3% per annum. If she earns equal interests from the two investments after 2 years, then find the sum invested at 12% per annum (in ₹).

Ans
✗ 1. 4,523
✗ 2. 4,519
✗ 3. 4,517
✓ 4. 4,520

Question ID : **44100976183**
Option 1 ID : **441009302990**
Option 2 ID : **441009302991**
Option 3 ID : **441009302989**
Option 4 ID : **441009302988**

Q.12 A, B and C invest sums in the ratio 26 : 14 : 20. If they earned total profit of ₹4,150 at the end of year, then what is the difference between the shares of B and C?

Ans
✓ 1. ₹415
✗ 2. ₹369
✗ 3. ₹379
✗ 4. ₹377

Question ID : **44100976268**
Option 1 ID : **441009303328**
Option 2 ID : **441009303331**
Option 3 ID : **441009303330**
Option 4 ID : **441009303329**

Q.13 Evaluate the given expression.

$16 - 5 \times 3 + 4$

Ans
✗ 1. 8
✗ 2. 18
✓ 3. 5
✗ 4. 37

Question ID : **44100976223**
Option 1 ID : **441009303150**
Option 2 ID : **441009303149**
Option 3 ID : **441009303151**
Option 4 ID : **441009303148**

QuickSarkari.com | WhatsApp Channel | Telegram: t.me/quick_sarkari

Q.14 The value of $9^2 + \sqrt{5^2} - 8\sqrt{4} - 10$ is:

Ans
✗ 1. 70
✓ 2. 60
✗ 3. 51
✗ 4. 62

Question ID : **44100976240**
Option 1 ID : **441009303218**
Option 2 ID : **441009303216**
Option 3 ID : **441009303217**
Option 4 ID : **441009303219**

Q.15 A can complete a work in 40 days and B can complete 50% of the same work in 30 days. Both work together for 6 days. The remaining work was completed by C alone in 9 days. Working together A, B and C will complete the same work in:

Ans
✗ 1. 15 days
✓ 2. 8 days
✗ 3. 10 days
✗ 4. 12 days

Question ID : **44100976193**
Option 1 ID : **441009303031**
Option 2 ID : **441009303029**
Option 3 ID : **441009303028**
Option 4 ID : **441009303030**

Q.16 The least prime number is:

Ans
✗ 1. 1
✓ 2. 2
✗ 3. 0
✗ 4. 3

Question ID : **44100976218**
Option 1 ID : **441009303129**
Option 2 ID : **441009303130**
Option 3 ID : **441009303128**
Option 4 ID : **441009303131**

QuickSarkari.com | WhatsApp Channel | Telegram: t.me/quick_sarkari

Q.17 In an election, the winner got 80% of the total valid votes. If 18% are invalid votes out of 2,60,000 votes, then the votes polled in favour of the winner is:

Ans
✔ 1. 1,70,560
✘ 2. 1,50,670
✘ 3. 1,76,500
✘ 4. 1,60,570

Question ID : **44100976208**
Option 1 ID : **441009303089**
Option 2 ID : **441009303090**
Option 3 ID : **441009303091**
Option 4 ID : **441009303088**

Q.18 What is the smallest natural number that should be added to 9013 such that a remainder of 2 is left when the resulting number is divided by each of the numbers 21, 98, 26 and 91?

Ans
✘ 1. 2469
✘ 2. 2465
✔ 3. 2455
✘ 4. 2447

Question ID : **44100976279**
Option 1 ID : **441009303375**
Option 2 ID : **441009303373**
Option 3 ID : **441009303372**
Option 4 ID : **441009303374**

Q.19 If the product of two numbers is 8410 and their HCF is 29, then their LCM is:

Ans
✘ 1. 270
✘ 2. 310
✔ 3. 290
✘ 4. 330

Question ID : **44100976215**
Option 1 ID : **441009303118**
Option 2 ID : **441009303116**
Option 3 ID : **441009303117**
Option 4 ID : **441009303119**

Q.20 What will be the difference in population 3 years ago and 2 years ago of a town, whose current population is 5,00,000 and which is increasing at a rate of 25% every year?

Ans
✘ 1. 63,450
✘ 2. 63,250
✔ 3. 64,000
✘ 4. 64,350

Question ID : **44100976181**
Option 1 ID : **441009302981**
Option 2 ID : **441009302982**
Option 3 ID : **441009302980**
Option 4 ID : **441009302983**

QuickSarkari.com | WhatsApp Channel | Telegram: t.me/quick_sarkari

Section : English Language and Comprehension

Q.1 Select the most appropriate option to fill in the blank.

The _____ sky made everyone feel uneasy.

Ans
✗ 1. omen
✗ 2. omitting
✗ 3. ominously
✓ 4. ominous

Question ID : **44100976561**
Option 1 ID : **441009304434**
Option 2 ID : **441009304436**
Option 3 ID : **441009304435**
Option 4 ID : **441009304433**

Q.2 Select the most appropriate meaning of the given proverb.

Go to bed with the lamb and rise with the lark

Ans
✗ 1. Go to work early so that you can return to your family early.
✗ 2. Do not go to bed unless you finish your work for the day.
✓ 3. Go to bed early at night and rise early in the morning.
✗ 4. Do not go by the routines of other people, follow your own.

Question ID : **44100976643**
Option 1 ID : **441009304764**
Option 2 ID : **441009304762**
Option 3 ID : **441009304761**
Option 4 ID : **441009304763**

Q.3 Select the most appropriate option to fill in the blank.

The company ____ its operations into Africa next year.

Ans
✗ 1. has expanding
✓ 2. will expand
✗ 3. expands
✗ 4. has expanded

Question ID : **44100976546**
Option 1 ID : **441009304373**
Option 2 ID : **441009304375**
Option 3 ID : **441009304374**
Option 4 ID : **441009304376**

QuickSarkari.com | WhatsApp Channel | Telegram: t.me/quick_sarkari

Q.4 Select the option that can be used as a one-word substitute for the given group of words.

An event that occurs every two years

Ans
1. Triennial
2. Biennial
3. Monthly
4. Annual

Question ID : **44100976591**
Option 1 ID : **441009304554**
Option 2 ID : **441009304555**
Option 3 ID : **441009304556**
Option 4 ID : **441009304553**

Q.5 Select the most appropriate meaning of the given idiom.

Cost an arm and a leg

Ans
1. To be very expensive
2. To remove all important things
3. To lose a limb in an accident
4. To win a bet

Question ID : **44100976638**
Option 1 ID : **441009304742**
Option 2 ID : **441009304743**
Option 3 ID : **441009304741**
Option 4 ID : **441009304744**

Q.6 Select the INCORRECTLY spelt word in the given sentence.

The renowned scholar's treatise provided a comprehensive analysis of medieaval philosophy, delving into esoteric concepts with unparalleled clarity.

Ans
1. esoteric
2. unparalleled
3. medieaval
4. renowned

Question ID : **44100976615**
Option 1 ID : **441009304651**
Option 2 ID : **441009304652**
Option 3 ID : **441009304650**
Option 4 ID : **441009304649**

QuickSarkari.com | WhatsApp Channel | Telegram: t.me/quick_sarkari

Q.7 Select the most appropriate synonym of the given word.

Melancholy

Ans
1. Harmony
2. Despondency
3. Mellowy
4. Merciful

Question ID : **44100976649**
Option 1 ID : **441009304787**
Option 2 ID : **441009304786**
Option 3 ID : **441009304788**
Option 4 ID : **441009304785**

Q.8 Parts of a sentence are given below in jumbled order. Arrange the parts in the correct order to form a meaningful sentence.

mountains / proudly / the / stand / the / in / landscape.

Ans
1. The mountains stand proudly in the landscape.
2. Mountains proudly in the landscape stand.
3. The landscape in stand mountains proudly.
4. Stand proudly the mountains in landscape.

Question ID : **44100976599**
Option 1 ID : **441009304587**
Option 2 ID : **441009304585**
Option 3 ID : **441009304588**
Option 4 ID : **441009304586**

Q.9 Select the INCORRECTLY spelt word in the given sentence.

The chef's signature dish was a delightful combination of exquisite ingridients, seasoned to perfection.

Ans
1. signature
2. ingridients
3. perfection
4. delightful

Question ID : **44100976616**
Option 1 ID : **441009304653**
Option 2 ID : **441009304654**
Option 3 ID : **441009304656**
Option 4 ID : **441009304655**

QuickSarkari.com | WhatsApp Channel | Telegram: t.me/quick_sarkari

Q.10 Select the most appropriate option to fill in the blank.

We go to the beach _____, whenever we find some free time.

Ans
✗ 1. over and over
✗ 2. now and again
✗ 3. by and by
✓ 4. now and then

Question ID : **44100976544**
Option 1 ID : **441009304368**
Option 2 ID : **441009304367**
Option 3 ID : **441009304365**
Option 4 ID : **441009304366**

Q.11 Select the most appropriate option to fill in the blank.

Kolkata is situated ____ the east bank of the Hooghly river.

Ans
✗ 1. against
✓ 2. on
✗ 3. across
✗ 4. in

Question ID : **44100976548**
Option 1 ID : **441009304382**
Option 2 ID : **441009304383**
Option 3 ID : **441009304381**
Option 4 ID : **441009304384**

Q.12 Sentences of a paragraph are given below in jumbled order. Arrange the sentences in the correct order to form a meaningful and coherent paragraph.

(A) Mom also mentioned that she had bought my favourite fruit, apples.
(B) Finally, she told me that she would be making a delicious stir-fry for dinner that night.
(C) She said that she had picked up fresh vegetables and chicken from the market.
(D) Yesterday, my mom told me that she had bought some groceries for dinner.

Ans
✗ 1. BADC
✓ 2. DCAB
✗ 3. ABDC
✗ 4. CDBA

Question ID : **44100976602**
Option 1 ID : **441009304600**
Option 2 ID : **441009304598**
Option 3 ID : **441009304599**
Option 4 ID : **441009304597**

Q.13 Select the option that can be used as a one-word substitute for the given group of words.

Deriving ideas from a broad range of sources

Ans
1. Mendacious
2. Eclectic
3. Gregarious
4. Astute

Question ID : **44100976587**
Option 1 ID : **441009304538**
Option 2 ID : **441009304539**
Option 3 ID : **441009304537**
Option 4 ID : **441009304540**

Q.14 Select the most appropriate ANTONYM of the given word.

Affluent

Ans
1. Opulent
2. Prosperous
3. Indigent
4. Moneyed

Question ID : **44100976624**
Option 1 ID : **441009304685**
Option 2 ID : **441009304686**
Option 3 ID : **441009304687**
Option 4 ID : **441009304688**

Q.15 Select the most appropriate article to fill in the blank. If no article is needed, select 'No article required'.

Alcoholic beverages are classified as carcinogenic by _____ International Agency for Research on Cancer, and they increase the risk of several types of cancer.

Ans
1. an
2. the
3. No article required
4. a

Question ID : **44100976568**
Option 1 ID : **441009304461**
Option 2 ID : **441009304463**
Option 3 ID : **441009304464**
Option 4 ID : **441009304462**

QuickSarkari.com | WhatsApp Channel | Telegram: t.me/quick_sarkari

Comprehension:

Read the given passage and answer the questions that follow.

The phrase 'trench warfare' immediately conjures images of the mud and slaughter of the Western Front during World War I. Millions died in fruitless offensives that saw men "go over the top" into withering machine gun fire. Ultimately, inventions such as tanks and airplanes allowed troops to move through or over No Man's Land, and new technologies and doctrines would usher in the mobile warfare that characterised World War II in Europe. The German blitzkrieg flew over and drove around the Maginot Line, perhaps the most formidable static defensive barrier ever constructed, and that would seem to have spelled the end of trench warfare.

For this reason, and because trench warfare is so closely associated with primitive black-and-white footage of men struggling to cross the pockmarked battlefields of Belgium and France, it is commonly assumed that this military strategy is a relic of a bygone age, as likely to reappear as catapults or cavalry charges.

SubQuestion No : 16

Q.16 What is the ANTONYM of the word 'formidable' as given in the passage?

Ans

✗ 1. Defensible

✗ 2. Powerful

✗ 3. Impressive

✓ 4. Weak

Question ID : **44100976663**
Option 1 ID : **441009304840**
Option 2 ID : **441009304839**
Option 3 ID : **441009304838**
Option 4 ID : **441009304837**

Comprehension:

Read the given passage and answer the questions that follow.

The phrase 'trench warfare' immediately conjures images of the mud and slaughter of the Western Front during World War I. Millions died in fruitless offensives that saw men "go over the top" into withering machine gun fire. Ultimately, inventions such as tanks and airplanes allowed troops to move through or over No Man's Land, and new technologies and doctrines would usher in the mobile warfare that characterised World War II in Europe. The German blitzkrieg flew over and drove around the Maginot Line, perhaps the most formidable static defensive barrier ever constructed, and that would seem to have spelled the end of trench warfare.

For this reason, and because trench warfare is so closely associated with primitive black-and-white footage of men struggling to cross the pockmarked battlefields of Belgium and France, it is commonly assumed that this military strategy is a relic of a bygone age, as likely to reappear as catapults or cavalry charges.

SubQuestion No : 17

Q.17 Select the most appropriate title for the passage.

Ans

✗ 1. Technological Decline of War Weapons

✗ 2. The Legacy of the Western Front

✗ 3. No Man's Land

✓ 4. The Decline of Trench Warfare

Question ID : **44100976659**
Option 1 ID : **441009304822**
Option 2 ID : **441009304824**
Option 3 ID : **441009304823**
Option 4 ID : **441009304821**

Comprehension:

Read the given passage and answer the questions that follow.

The phrase 'trench warfare' immediately conjures images of the mud and slaughter of the Western Front during World War I. Millions died in fruitless offensives that saw men "go over the top" into withering machine gun fire. Ultimately, inventions such as tanks and airplanes allowed troops to move through or over No Man's Land, and new technologies and doctrines would usher in the mobile warfare that characterised World War II in Europe. The German blitzkrieg flew over and drove around the Maginot Line, perhaps the most formidable static defensive barrier ever constructed, and that would seem to have spelled the end of trench warfare.

For this reason, and because trench warfare is so closely associated with primitive black-and-white footage of men struggling to cross the pockmarked battlefields of Belgium and France, it is commonly assumed that this military strategy is a relic of a bygone age, as likely to reappear as catapults or cavalry charges.

SubQuestion No : 18

Q.18 What is the tone of the passage?

Ans

✔ 1. Informative

✘ 2. Nostalgic

✘ 3. Elative

✘ 4. Critical

Question ID : **44100976660**
Option 1 ID : **441009304827**
Option 2 ID : **441009304825**
Option 3 ID : **441009304828**
Option 4 ID : **441009304826**

Comprehension:

Read the given passage and answer the questions that follow.

The phrase 'trench warfare' immediately conjures images of the mud and slaughter of the Western Front during World War I. Millions died in fruitless offensives that saw men "go over the top" into withering machine gun fire. Ultimately, inventions such as tanks and airplanes allowed troops to move through or over No Man's Land, and new technologies and doctrines would usher in the mobile warfare that characterised World War II in Europe. The German blitzkrieg flew over and drove around the Maginot Line, perhaps the most formidable static defensive barrier ever constructed, and that would seem to have spelled the end of trench warfare.

For this reason, and because trench warfare is so closely associated with primitive black-and-white footage of men struggling to cross the pockmarked battlefields of Belgium and France, it is commonly assumed that this military strategy is a relic of a bygone age, as likely to reappear as catapults or cavalry charges.

SubQuestion No : 19

Q.19 Which of the following is the central idea of the passage?

Ans

✔ 1. Antiquity of trench warfare

✘ 2. General warfare techniques

✘ 3. Technological decline of warfare

✘ 4. Evolution of modern warfare

Question ID : **44100976662**
Option 1 ID : **441009304833**
Option 2 ID : **441009304834**
Option 3 ID : **441009304836**
Option 4 ID : **441009304835**

Comprehension:

Read the given passage and answer the questions that follow.

The phrase 'trench warfare' immediately conjures images of the mud and slaughter of the Western Front during World War I. Millions died in fruitless offensives that saw men "go over the top" into withering machine gun fire. Ultimately, inventions such as tanks and airplanes allowed troops to move through or over No Man's Land, and new technologies and doctrines would usher in the mobile warfare that characterised World War II in Europe. The German blitzkrieg flew over and drove around the Maginot Line, perhaps the most formidable static defensive barrier ever constructed, and that would seem to have spelled the end of trench warfare.

For this reason, and because trench warfare is so closely associated with primitive black-and-white footage of men struggling to cross the pockmarked battlefields of Belgium and France, it is commonly assumed that this military strategy is a relic of a bygone age, as likely to reappear as catapults or cavalry charges.

SubQuestion No : 20

Q.20 Which of the following is NOT a fact from the passage?

Ans ✗ 1. Trench warfare involved many fruitless offensives and high casualties.

✓ 2. Trench warfare is still a commonly used military strategy today.

✗ 3. The Maginot Line was the most formidable static defensive barrier ever constructed.

✗ 4. Tanks and airplanes were significant technological innovations in World War I.

Question ID : **44100976661**
Option 1 ID : **441009304829**
Option 2 ID : **441009304832**
Option 3 ID : **441009304831**
Option 4 ID : **441009304830**

Section : Hindi Language and Comprehension

Q.1 निम्न वाक्यों में से अशुद्ध वाक्य का चयन कीजिए -

Ans ✗ 1. वह कमरे में जाकर सो गया है।

✗ 2. मैं रातभर जागा।

✓ 3. आपने भोजन को किया?

✗ 4. भारत में अनेक जाति के लोग रहते हैं।

Question ID : **44100972465**
Option 1 ID : **441009288208**
Option 2 ID : **441009288207**
Option 3 ID : **441009288206**
Option 4 ID : **441009288205**

Q.2 'अधोगामी' का विलोम शब्द है-

Ans ✗ 1. वैकल्पिक

✗ 2. कृपण

✗ 3. अनुध्दत

✓ 4. ऊर्ध्वगामी

Question ID : **44100972533**
Option 1 ID : **441009288449**
Option 2 ID : **441009288452**
Option 3 ID : **441009288451**
Option 4 ID : **441009288450**

Q.3 'भीरु' का विलोम शब्द है-

Ans
✗ 1. भूत
✗ 2. सुकर्म
✗ 3. भय
✓ 4. निर्भीक

Question ID : **44100972527**
Option 1 ID : **441009288427**
Option 2 ID : **441009288428**
Option 3 ID : **441009288425**
Option 4 ID : **441009288426**

Q.4 'कटाक्ष' शब्द का अनेकार्थी शब्द है -

Ans
✗ 1. खैरियत
✓ 2. व्यंग्य
✗ 3. नष्ट
✗ 4. पपड़ी

Question ID : **44100972530**
Option 1 ID : **441009288438**
Option 2 ID : **441009288437**
Option 3 ID : **441009288440**
Option 4 ID : **441009288439**

Q.5 दिए गए वाक्य में उचित क्रिया विशेषण का प्रयोग करते हुए वाक्य पूर्ण करें-
सिद्धार्थ सोता है

Ans
✗ 1. नाचता
✗ 2. इसलिए
✓ 3. बहुत
✗ 4. जैसा

Question ID : **44100972414**
Option 1 ID : **441009288004**
Option 2 ID : **441009288003**
Option 3 ID : **441009288002**
Option 4 ID : **441009288001**

Q.6 'जो उचित समय पर न हो' वाक्यांश के लिए सार्थक शब्द है-

Ans
✗ 1. अपार
✓ 2. असामयिक
✗ 3. अनुज
✗ 4. अलौकिक

Question ID : **44100972440**
Option 1 ID : **441009288108**
Option 2 ID : **441009288107**
Option 3 ID : **441009288105**
Option 4 ID : **441009288106**

QuickSarkari.com | WhatsApp Channel | Telegram: t.me/quick_sarkari

Q.7 निम्नलिखित वाक्य को क्रम में लिखें-
1- ईश्वर की
2- ओर से मिली है
3- समय वह संपत्ति है
4- जो प्रत्येक मनुष्य को

Ans
✗ 1. 1, 3, 4, 2
✗ 2. 2, 3, 4, 1
✗ 3. 4, 3, 2, 1
✓ 4. 3, 4,1, 2

Question ID : **44100972454**
Option 1 ID : **441009288163**
Option 2 ID : **441009288162**
Option 3 ID : **441009288164**
Option 4 ID : **441009288161**

Q.8 'अस्सी की आमद चौरासी का खर्च' लोकोक्ति का सही अर्थ है-

Ans
✗ 1. समय निकल जाने पर पछताना बेकार है
✗ 2. अपना दोष दूसरों पर मढ़ना
✓ 3. आय से अधिक खर्च
✗ 4. अपनी वस्तु की बुराई नहीं करना

Question ID : **44100972540**
Option 1 ID : **441009288479**
Option 2 ID : **441009288480**
Option 3 ID : **441009288477**
Option 4 ID : **441009288478**

Q.9 निम्नलिखित में से कौन-सा वाक्य अशुद्ध है?

Ans
✗ 1. मैंने गुरुजी के दर्शन किये।
✗ 2. श्रीमती इंदिरा गाँधी भारत की प्रधानमंत्री थी।
✗ 3. नदियों के पानी से सिंचाई की जाती है।
✓ 4. उसकी दुकान पर शुद्ध गाय का घी मिलता है।

Question ID : **44100972463**
Option 1 ID : **441009288200**
Option 2 ID : **441009288197**
Option 3 ID : **441009288198**
Option 4 ID : **441009288199**

Q.10 निम्नलिखित वाक्य में से शुध्द वाक्य का चयन करें

Ans
✓ 1. कृपालु जी बहुत श्रध्दावान पुरुष थे|
✗ 2. कृपालु जी बहुत श्राध्दवान थे|
✗ 3. कृपालु जी बहुत श्रध्दीय पुरुष थे|
✗ 4. कृपालु जी बहुत श्रधादामान पुरुष थे|

Question ID : **44100972552**
Option 1 ID : **441009288526**
Option 2 ID : **441009288528**
Option 3 ID : **441009288527**
Option 4 ID : **441009288525**

Q.11 दिए गए वाक्य में उचित क्रिया विशेषण का चयन करके रिक्त स्थान की पूर्ति करें -

जिन शब्दों से क्रिया के घटित होने के समय का पता चले उसे ---------कहते हैं।

Ans
✗ 1. स्थानवाचक क्रिया विशेषण
✓ 2. काल वाचक क्रिया विशेषण
✗ 3. रीतिवाचक क्रिया विशेषण
✗ 4. परिमाणवाचक क्रिया विशेषण

Question ID : 44100972408
Option 1 ID : 441009287979
Option 2 ID : 441009287977
Option 3 ID : 441009287978
Option 4 ID : 441009287980

Q.12 उचित 'रीतिवाचक निश्चयबोधक क्रियाविशेषण' चुनकर निम्न वाक्य पूर्ण करें-
'तुम परीक्षा में _____ उत्तीर्ण हो जाओगे|'

Ans
✗ 1. स्वतः
✓ 2. अवश्य
✗ 3. ऐसे
✗ 4. कदाचित्

Question ID : 44100972423
Option 1 ID : 441009288040
Option 2 ID : 441009288038
Option 3 ID : 441009288037
Option 4 ID : 441009288039

Q.13 निम्न में से अतिरिक्त वाक्य का चयन करें।

Ans
✗ 1. संगठन में शक्ति होती है।
✓ 2. मेरा स्वास्थ्य अच्छा है।
✗ 3. एकता में बल है।
✗ 4. एक और एक ग्यारह होते है।

Question ID : 44100972462
Option 1 ID : 441009288195
Option 2 ID : 441009288194
Option 3 ID : 441009288196
Option 4 ID : 441009288193

Q.14 'अढाई हाथ की ककड़ी नौ हाथ का बीज' लोकोक्ति का उचित अर्थ है-

Ans
✗ 1. शारीरिक शक्ति से बुध्दि श्रेष्ठ है
✗ 2. दुःख सुनाने पर ध्यान न देना
✗ 3. निर्धन का भाग्य बुरा होता है
✓ 4. अनहोनी बात

Question ID : 44100972543
Option 1 ID : 441009288489
Option 2 ID : 441009288491
Option 3 ID : 441009288492
Option 4 ID : 441009288490

QuickSarkari.com | WhatsApp Channel | Telegram: t.me/quick_sarkari

Q.15 'चरित' शब्द का तत्सम शब्द है-

Ans
✗ 1. चर्म
✗ 2. रात्रि
✗ 3. चमचा
✓ 4. चरित्र

Question ID : **44100972517**
Option 1 ID : **441009288387**
Option 2 ID : **441009288385**
Option 3 ID : **441009288386**
Option 4 ID : **441009288388**

Comprehension:

निम्नलिखित गद्यांश को ध्यानपूर्वक पढ़कर पूछे गए प्रश्नो के लिए सही विकल्प चुनकर लिखे-

तुम्हें क्या करना चाहिए, इसका ठीक-ठीक उत्तर तुम्हीं को देना होगा, दूसरा कोई नहीं दे सकता। कैसा भी विश्वास - पात्र मित्र हो, तुम्हारे इस काम को वह अपने ऊपर नहीं ले सकता। हम अनुभवी लोगों की बातों को आदर के साथ सुनें, बुद्धिमानों की सलाह को कृतज्ञतापूर्वक मानें, पर इस बात को निश्चित समझकर कि हमारे कामों से ही हमारी रक्षा व हमारा पतन होगा। हमें अपने विचार और निर्णय की स्वतंत्रता को दृढ़तापूर्वक बनाए रखना चाहिए। जिस पुरुष की दृष्टि सदा नीची रहती है, उसका सिर कभी ऊपर न होगा। नीची दृष्टि रखने से यद्यपि रास्ते पर रहेंगे, पर इस बात को न देखेंगे कि यह रास्ता कहाँ ले जाता है। चित्त की स्वतंत्रता का मतलब चेष्टा की कठोरता या प्रकृति की उग्रता नहीं है। अपने व्यवहार में कोमल रहो और अपने उद्देश्यों को उच्च रखो, इस प्रकार नम्र और उच्चाशय दोनों बनो। अपने मन को कभी मरा हुआ न रखो। जो मनुष्य अपना लक्ष्य जितना ही ऊपर रखता है, उतना ही उसका तीर ऊपर जाता है। स्वामी विवेकानंद कहते हैं कि जीवन में एक ही लक्ष्य बनाओ और अपनी पूरी शक्ति लगाकर जुट जाओ, उस लक्ष्य की प्राप्ति के लिए; सफलता अवश्य आपके कदम चूमेगी। असल में जब आप कोई कर्म करते हैं, तो ज़रूरी नहीं कि आपको सफलता मिल ही जाए, लेकिन आपको असफलताओं से घबराना नहीं चाहिए। अगर बार-बार भी असफलता हाथ आती है, तो भी आपको निराश नहीं होना है। एक हज़ार बार प्रयास करने के बाद यदि आप हारकर गिर पड़े हैं, तो एक बार फिर से उठें और प्रयास करें। हमें लक्ष्य की प्राप्ति तक स्वयं पर विश्वास और आस्था रखनी चाहिए और अपनी सोच को हमेशा सकारात्मक रखना चाहिए।

SubQuestion No : 16

Q.16 हमारी रक्षा व पतन किस बात से होगा?

Ans
✗ 1. लक्ष्य को नीचा करके
✗ 2. दूसरों का आदर न करके
✓ 3. हमारे अपने कामों से
✗ 4. बुद्धिमानों की सलाह न मानकर

Question ID : **44100937174**
Option 1 ID : **441009148227**
Option 2 ID : **441009148224**
Option 3 ID : **441009148225**
Option 4 ID : **441009148226**

Quick Sarkari

Comprehension:

निम्नलिखित गद्यांश को ध्यानपूर्वक पढ़कर पूछे गए प्रश्नो के लिए सही विकल्प चुनकर लिखे-

तुम्हें क्या करना चाहिए, इसका ठीक-ठीक उत्तर तुम्हीं को देना होगा, दूसरा कोई नहीं दे सकता। कैसा भी विश्वास - पात्र मित्र हो, तुम्हारे इस काम को वह अपने ऊपर नहीं ले सकता। हम अनुभवी लोगों की बातों को आदर के साथ सुनें, बुद्धिमानों की सलाह को कृतज्ञतापूर्वक मानें, पर इस बात को निश्चित समझकर कि हमारे कामों से ही हमारी रक्षा व हमारा पतन होगा। हमें अपने विचार और निर्णय की स्वतंत्रता को दृढ़तापूर्वक बनाए रखना चाहिए। जिस पुरुष की दृष्टि सदा नीची रहती है, उसका सिर कभी ऊपर न होगा। नीची दृष्टि रखने से यद्यपि रास्ते पर रहेंगे, पर इस बात को न देखेंगे कि यह रास्ता कहाँ ले जाता है। चित्त की स्वतंत्रता का मतलब चेष्टा की कठोरता या प्रकृति की उग्रता नहीं है। अपने व्यवहार में कोमल रहो और अपने उद्देश्यों को उच्च रखो, इस प्रकार नम्र और उच्चाशय दोनों बनो। अपने मन को कभी मरा हुआ न रखो। जो मनुष्य अपना लक्ष्य जितना ही ऊपर रखता है, उतना ही उसका तीर ऊपर जाता है। स्वामी विवेकानंद कहते हैं कि जीवन में एक ही लक्ष्य बनाओ और अपनी पूरी शक्ति लगाकर जुट जाओ, उस लक्ष्य की प्राप्ति के लिए; सफलता अवश्य आपके कदम चूमेगी। असल में जब आप कोई कर्म करते हैं, तो ज़रूरी नहीं कि आपको सफलता मिल ही जाए, लेकिन आपको असफलताओं से घबराना नहीं चाहिए। अगर बार-बार भी असफलता हाथ आती है, तो भी आपको निराश नहीं होना है। एक हज़ार बार प्रयास करने के बाद यदि आप हारकर गिर पड़े हैं, तो एक बार फिर से उठें और प्रयास करें। हमें लक्ष्य की प्राप्ति तक स्वयं पर विश्वास और आस्था रखनी चाहिए और अपनी सोच को हमेशा सकारात्मक रखना चाहिए।

SubQuestion No : 17

Q.17 हमें दृढ़तापूर्वक बनाए रखना चाहिए-

Ans
✗ 1. अपने व्यवहार को
✗ 2. अच्छे गुणों को
✗ 3. अपने कार्यों को
✓ 4. अपने विचार और निर्णय की स्वतंत्रता को

Question ID : **44100937175**
Option 1 ID : **441009148231**
Option 2 ID : **441009148228**
Option 3 ID : **441009148230**
Option 4 ID : **441009148229**

QuickSarkari.com | WhatsApp Channel | Telegram: t.me/quick_sarkari

Comprehension:

निम्नलिखित गद्यांश को ध्यानपूर्वक पढ़कर पूछे गए प्रश्नो के लिए सही विकल्प चुनकर लिखे-

तुम्हें क्या करना चाहिए, इसका ठीक-ठीक उत्तर तुम्हीं को देना होगा, दूसरा कोई नहीं दे सकता। कैसा भी विश्वास - पात्र मित्र हो, तुम्हारे इस काम को वह अपने ऊपर नहीं ले सकता। हम अनुभवी लोगों की बातों को आदर के साथ सुनें, बुद्धिमानों की सलाह को कृतज्ञतापूर्वक मानें, पर इस बात को निश्चित समझकर कि हमारे कामों से ही हमारी रक्षा व हमारा पतन होगा। हमें अपने विचार और निर्णय की स्वतंत्रता को दृढ़तापूर्वक बनाए रखना चाहिए। जिस पुरुष की दृष्टि सदा नीची रहती है, उसका सिर कभी ऊपर न होगा। नीची दृष्टि रखने से यद्यपि रास्ते पर रहेंगे, पर इस बात को न देखेंगे कि यह रास्ता कहाँ ले जाता है। चित्त की स्वतंत्रता का मतलब चेष्टा की कठोरता या प्रकृति की उग्रता नहीं है। अपने व्यवहार में कोमल रहो और अपने उद्देश्यों को उच्च रखो, इस प्रकार नम्र और उच्चाशय दोनों बनो। अपने मन को कभी मरा हुआ न रखो। जो मनुष्य अपना लक्ष्य जितना ही ऊपर रखता है, उतना ही उसका तीर ऊपर जाता है। स्वामी विवेकानंद कहते हैं कि जीवन में एक ही लक्ष्य बनाओ और अपनी पूरी शक्ति लगाकर जुट जाओ, उस लक्ष्य की प्राप्ति के लिए; सफलता अवश्य आपके कदम चूमेगी। असल में जब आप कोई कर्म करते हैं, तो ज़रूरी नहीं कि आपको सफलता मिल ही जाए, लेकिन आपको असफलताओं से घबराना नहीं चाहिए। अगर बार-बार भी असफलता हाथ आती है, तो भी आपको निराश नहीं होना है। एक हज़ार बार प्रयास करने के बाद यदि आप हारकर गिर पड़े हैं, तो एक बार फिर से उठें और प्रयास करें। हमें लक्ष्य की प्राप्ति तक स्वयं पर विश्वास और आस्था रखनी चाहिए और अपनी सोच को हमेशा सकारात्मक रखना चाहिए।

SubQuestion No : 18

Q.18 मनुष्य को क्या करना चाहिए, इसका ठीक-ठीक उत्तर कौन देगा?

Ans
✗ 1. जानवर उत्तर देंगे

✓ 2. मनुष्य को उत्तर स्वयं देना होगा

✗ 3. दूसरों से उत्तर मांगना होगा

✗ 4. कोई भी उत्तर नहीं दे सकता

Question ID : **44100937173**
Option 1 ID : **441009148223**
Option 2 ID : **441009148221**
Option 3 ID : **441009148222**
Option 4 ID : **441009148220**

QuickSarkari.com | WhatsApp Channel | Telegram: t.me/quick_sarkari

Comprehension:

निम्नलिखित गद्यांश को ध्यानपूर्वक पढ़कर पूछे गए प्रश्नो के लिए सही विकल्प चुनकर लिखे-

तुम्हें क्या करना चाहिए, इसका ठीक-ठीक उत्तर तुम्हीं को देना होगा, दूसरा कोई नहीं दे सकता। कैसा भी विश्वास - पात्र मित्र हो, तुम्हारे इस काम को वह अपने ऊपर नहीं ले सकता। हम अनुभवी लोगों की बातों को आदर के साथ सुनें, बुद्धिमानों की सलाह को कृतज्ञतापूर्वक मानें, पर इस बात को निश्चित समझकर कि हमारे कामों से ही हमारी रक्षा व हमारा पतन होगा। हमें अपने विचार और निर्णय की स्वतंत्रता को दृढ़तापूर्वक बनाए रखना चाहिए। जिस पुरुष की दृष्टि सदा नीची रहती है, उसका सिर कभी ऊपर न होगा। नीची दृष्टि रखने से यद्यपि रास्ते पर रहेंगे, पर इस बात को न देखेंगे कि यह रास्ता कहाँ ले जाता है। चित्त की स्वतंत्रता का मतलब चेष्टा की कठोरता या प्रकृति की उग्रता नहीं है। अपने व्यवहार में कोमल रहो और अपने उद्देश्यों को उच्च रखो, इस प्रकार नम्र और उच्चाशय दोनों बनो। अपने मन को कभी मरा हुआ न रखो। जो मनुष्य अपना लक्ष्य जितना ही ऊपर रखता है, उतना ही उसका तीर ऊपर जाता है। स्वामी विवेकानंद कहते हैं कि जीवन में एक ही लक्ष्य बनाओ और अपनी पूरी शक्ति लगाकर जुट जाओ, उस लक्ष्य की प्राप्ति के लिए; सफलता अवश्य आपके कदम चूमेगी। असल में जब आप कोई कर्म करते हैं, तो ज़रूरी नहीं कि आपको सफलता मिल ही जाए, लेकिन आपको असफलताओं से घबराना नहीं चाहिए। अगर बार-बार भी असफलता हाथ आती है, तो भी आपको निराश नहीं होना है। एक हज़ार बार प्रयास करने के बाद यदि आप हारकर गिर पड़े हैं, तो एक बार फिर से उठें और प्रयास करें। हमें लक्ष्य की प्राप्ति तक स्वयं पर विश्वास और आस्था रखनी चाहिए और अपनी सोच को हमेशा सकारात्मक रखना चाहिए।

SubQuestion No : 19

Q.19 अपना सिर ऊपर रखने के लिए मनुष्य को क्या करना चाहिए?

Ans
✗ 1. नज़रें नीची करके चलना चाहिए।

✗ 2. सिर उठाकर चलना चाहिए।

✗ 3. चोरी करके चलना चाहिए

✓ 4. अपने उद्देश्य को ऊँचा रखना चाहिए

Question ID : **44100937176**
Option 1 ID : **441009148234**
Option 2 ID : **441009148232**
Option 3 ID : **441009148235**
Option 4 ID : **441009148233**

QuickSarkari.com | WhatsApp Channel | Telegram: t.me/quick_sarkari

Comprehension:

निम्नलिखित गद्यांश को ध्यानपूर्वक पढ़कर पूछे गए प्रश्नो के लिए सही विकल्प चुनकर लिखे-

तुम्हें क्या करना चाहिए, इसका ठीक-ठीक उत्तर तुम्हीं को देना होगा, दूसरा कोई नहीं दे सकता। कैसा भी विश्वास - पात्र मित्र हो, तुम्हारे इस काम को वह अपने ऊपर नहीं ले सकता। हम अनुभवी लोगों की बातों को आदर के साथ सुनें, बुद्धिमानों की सलाह को कृतज्ञतापूर्वक मानें, पर इस बात को निश्चित समझकर कि हमारे कामों से ही हमारी रक्षा व हमारा पतन होगा। हमें अपने विचार और निर्णय की स्वतंत्रता को दृढ़तापूर्वक बनाए रखना चाहिए। जिस पुरुष की दृष्टि सदा नीची रहती है, उसका सिर कभी ऊपर न होगा। नीची दृष्टि रखने से यद्यपि रास्ते पर रहेंगे, पर इस बात को न देखेंगे कि यह रास्ता कहाँ ले जाता है। चित्त की स्वतंत्रता का मतलब चेष्टा की कठोरता या प्रकृति की उग्रता नहीं है। अपने व्यवहार में कोमल रहो और अपने उद्देश्यों को उच्च रखो, इस प्रकार नम्र और उच्चाशय दोनों बनो। अपने मन को कभी मरा हुआ न रखो। जो मनुष्य अपना लक्ष्य जितना ही ऊपर रखता है, उतना ही उसका तीर ऊपर जाता है। स्वामी विवेकानंद कहते हैं कि जीवन में एक ही लक्ष्य बनाओ और अपनी पूरी शक्ति लगाकर जुट जाओ, उस लक्ष्य की प्राप्ति के लिए; सफलता अवश्य आपके कदम चूमेगी। असल में जब आप कोई कर्म करते हैं, तो ज़रूरी नहीं कि आपको सफलता मिल ही जाए, लेकिन आपको असफलताओं से घबराना नहीं चाहिए। अगर बार-बार भी असफलता हाथ आती है, तो भी आपको निराश नहीं होना है। एक हज़ार बार प्रयास करने के बाद यदि आप हारकर गिर पड़े हैं, तो एक बार फिर से उठें और प्रयास करें। हमें लक्ष्य की प्राप्ति तक स्वयं पर विश्वास और आस्था रखनी चाहिए और अपनी सोच को हमेशा सकारात्मक रखना चाहिए।

SubQuestion No : 20

Q.20 प्रस्तुत गद्यांश का उचित शीर्षक लिखिए।

Ans
✗ 1. उच्च विचार
✓ 2. दृढ़चित्त मनुष्य
✗ 3. मनुष्य का ज्ञान
✗ 4. सदा जीवन जीना

Question ID : **44100937177**
Option 1 ID : **441009148239**
Option 2 ID : **441009148237**
Option 3 ID : **441009148236**
Option 4 ID : **441009148238**

Section : **Discipline1**

Q.1 Adenoiditis is the inflammation of the:

Ans
✗ 1. adrenal cortex and medulla
✗ 2. middle layer of the eyes
✗ 3. middle layer of the ears
✓ 4. nasopharyngeal tonsils

Question ID : **441009116220**
Option 1 ID : **441009462304**
Option 2 ID : **441009462306**
Option 3 ID : **441009462307**
Option 4 ID : **441009462305**

QuickSarkari.com | WhatsApp Channel | Telegram: t.me/quick_sarkari

Q.2 What is lacking in the diet of a person with marasmus?

Ans
✗ 1. Only fats and fat-soluble vitamins
✗ 2. Only carbohydrate and water-soluble vitamins
✓ 3. Carbohydrates, fats, and protein
✗ 4. Only vitamins and minerals

Question ID : **441009119683**
Option 1 ID : **441009475851**
Option 2 ID : **441009475852**
Option 3 ID : **441009475853**
Option 4 ID : **441009475854**

Q.3 All of the following are the basic tools of measurement in epidemiology, EXCEPT:

Ans
✗ 1. ratio
✗ 2. proportion
✗ 3. rate
✓ 4. mode

Question ID : **441009123214**
Option 1 ID : **441009489757**
Option 2 ID : **441009489759**
Option 3 ID : **441009489756**
Option 4 ID : **441009489758**

Q.4 The Family Courts Act was enacted in India in _____.

Ans
✗ 1. 1971
✗ 2. 1966
✓ 3. 1984
✗ 4. 1952

Question ID : **441009121326**
Option 1 ID : **441009482304**
Option 2 ID : **441009482303**
Option 3 ID : **441009482305**
Option 4 ID : **441009482302**

Q.5 Which condition is also known as intermenstrual bleeding?

Ans
✓ 1. Metrorrhagia
✗ 2. Oligomenorrhoea
✗ 3. Menorrhagia
✗ 4. Amenorrhoea

Question ID : **441009116264**
Option 1 ID : **441009462501**
Option 2 ID : **441009462500**
Option 3 ID : **441009462502**
Option 4 ID : **441009462503**

QuickSarkari.com | WhatsApp Channel | Telegram: t.me/quick_sarkari

Q.6 Which of the following nutrients is essential for body-building and tissue repair?

Ans
✔ 1. Protein
✘ 2. Fat
✘ 3. Carbohydrate
✘ 4. Vitamins

Question ID : **441009132876**
Option 1 ID : **441009528293**
Option 2 ID : **441009528294**
Option 3 ID : **441009528292**
Option 4 ID : **441009528295**

Q.7 Which of the following dimensions of health focuses on the body's well-being, including regular exercise, healthy eating, adequate sleep and proper care for illnesses or injuries?

Ans
✔ 1. Physical
✘ 2. Mental
✘ 3. Social
✘ 4. Spiritual

Question ID : **441009120136**
Option 1 ID : **441009477606**
Option 2 ID : **441009477603**
Option 3 ID : **441009477604**
Option 4 ID : **441009477605**

Q.8 Peripheral neuritis is caused by _____ deficiency.

Ans
✘ 1. Vitamin D
✘ 2. Vitamin A
✘ 3. Vitamin C
✔ 4. Vitamin B6

Question ID : **441009132917**
Option 1 ID : **441009528458**
Option 2 ID : **441009528459**
Option 3 ID : **441009528457**
Option 4 ID : **441009528456**

Q.9 Which of the following types of counselling is known as counsellor-centred counselling?

Ans
✘ 1. Patient-centred counselling
✘ 2. Permissive counselling
✘ 3. Nondirective counselling
✔ 4. Directive counselling

Question ID : **441009123142**
Option 1 ID : **441009489475**
Option 2 ID : **441009489474**
Option 3 ID : **441009489473**
Option 4 ID : **441009489472**

QuickSarkari.com | WhatsApp Channel | Telegram: t.me/quick_sarkari

Q.10 What are the Panchayati Raj components at the district level?

Ans
✗ 1. Gram Panchayat
✗ 2. Nyaya Panchayat
✗ 3. Panchayat Samiti
✓ 4. Zilla Parishad

Question ID : **441009121223**
Option 1 ID : **441009481903**
Option 2 ID : **441009481905**
Option 3 ID : **441009481902**
Option 4 ID : **441009481904**

Q.11 Which of the following is the anvil-shaped middle ear bone?

Ans
✓ 1. Incus
✗ 2. Stapes
✗ 3. Stapedius
✗ 4. Malleus

Question ID : **441009114321**
Option 1 ID : **441009454739**
Option 2 ID : **441009454740**
Option 3 ID : **441009454741**
Option 4 ID : **441009454738**

Q.12 Participatory Learning and Action encompass all of the following participatory methods and approaches EXCEPT:

Ans
✗ 1. Participatory Action Research
✗ 2. Rapid Rural Appraisal
✗ 3. Participatory Rural Appraisal
✓ 4. Research Cum Action Project

Question ID : **441009123272**
Option 1 ID : **441009489990**
Option 2 ID : **441009489989**
Option 3 ID : **441009489988**
Option 4 ID : **441009489991**

Q.13 Which of the following conditions is also known as decubitus ulcer?

Ans
✗ 1. Cushing ulcer
✗ 2. Curling ulcer
✗ 3. Mouth sore
✓ 4. Bed sore

Question ID : **441009116037**
Option 1 ID : **441009461565**
Option 2 ID : **441009461564**
Option 3 ID : **441009461567**
Option 4 ID : **441009461566**

QuickSarkari.com | WhatsApp Channel | Telegram: t.me/quick_sarkari

Q.14 The birth height doubles at the age of:

Ans
✗ 1. 6 to 8 years
✓ 2. 3 to 4 years
✗ 3. 1 to 2 years
✗ 4. 6 to 8 months

Question ID : **441009118424**
Option 1 ID : **441009470859**
Option 2 ID : **441009470858**
Option 3 ID : **441009470857**
Option 4 ID : **441009470856**

Q.15 What is the full form of BCC in health communication?

Ans
✗ 1. Behavioural concentrating communication
✓ 2. Behaviour change communication
✗ 3. Boldness change communication
✗ 4. Boldness creating communication

Question ID : **441009123400**
Option 1 ID : **441009490500**
Option 2 ID : **441009490499**
Option 3 ID : **441009490501**
Option 4 ID : **441009490502**

Q.16 Which of the following health institutes is designed for tertiary care?

Ans
✗ 1. Community health centres and taluk hospitals
✗ 2. Family health centres and rural hospitals
✓ 3. Medical colleges and super-specialty hospital
✗ 4. Sub-centres and primary health centres

Question ID : **441009120964**
Option 1 ID : **441009480889**
Option 2 ID : **441009480890**
Option 3 ID : **441009480891**
Option 4 ID : **441009480888**

Q.17 Which of the following diseases is known as gluten-induced enteropathy?

Ans
✓ 1. Celiac disease
✗ 2. Porphyria
✗ 3. Phenylketonuria
✗ 4. Alkaptonuria

Question ID : **441009124279**
Option 1 ID : **441009494028**
Option 2 ID : **441009494027**
Option 3 ID : **441009494030**
Option 4 ID : **441009494029**

QuickSarkari.com | WhatsApp Channel | Telegram: t.me/quick_sarkari

Q.18 Iodine supplementation is encouraged to prevent which of the following health problems?

Ans ✔ 1. Goitre

✘ 2. Acromegaly

✘ 3. Dwarfism

✘ 4. Acromicria

Question ID : **441009119747**
Option 1 ID : **441009476108**
Option 2 ID : **441009476107**
Option 3 ID : **441009476110**
Option 4 ID : **441009476109**

Q.19 All of the following are the Panchayati Raj components of the village level, EXCEPT:

Ans ✔ 1. Panchayat Samiti

✘ 2. Nyaya Panchayat

✘ 3. Gram Sabha

✘ 4. Gram Panchayat

Question ID : **441009121257**
Option 1 ID : **441009482032**
Option 2 ID : **441009482033**
Option 3 ID : **441009482030**
Option 4 ID : **441009482031**

Q.20 In the Indian rural healthcare system, one Primary Health Centre typically serves as a referral unit for how many sub-centres?

Ans ✔ 1. 6 sub-centres

✘ 2. 10 sub-centres

✘ 3. 8 sub-centres

✘ 4. 4 sub-centres

Question ID : **441009120939**
Option 1 ID : **441009480785**
Option 2 ID : **441009480787**
Option 3 ID : **441009480786**
Option 4 ID : **441009480784**

Section : **Discipline2**

Q.1 Cross ventilation is achieved by:

Ans ✘ 1. sealing all windows to maintain temperature

✔ 2. placing doors and windows on opposite sides of a room to allow fresh air to flow

✘ 3. recirculating indoor air without fresh air intake

✘ 4. using exhaust fans to remove air

Question ID : **441009132852**
Option 1 ID : **441009528198**
Option 2 ID : **441009528196**
Option 3 ID : **441009528199**
Option 4 ID : **441009528197**

Q.2 Which of the following types of latrines is suitable for excreta disposal in temporary camps?

Ans
✔ 1. Bore hole latrine
✘ 2. Water-seal latrine
✘ 3. Septic tank
✘ 4. Aqua privy

Question ID : **441009132826**
Option 1 ID : **441009528093**
Option 2 ID : **441009528095**
Option 3 ID : **441009528094**
Option 4 ID : **441009528092**

Q.3 HIV-infected blood test tubes should be disposed of in which colour-coded bags?

Ans
✘ 1. Black biohazard bags
✘ 2. Red biohazard bags
✘ 3. Blue biohazard bags
✔ 4. Yellow biohazard bags

Question ID : **441009122741**
Option 1 ID : **441009487873**
Option 2 ID : **441009487874**
Option 3 ID : **441009487875**
Option 4 ID : **441009487876**

Q.4 All of the following illnesses are transmitted through contaminated water, EXCEPT:

Ans
✘ 1. dysentery
✘ 2. giardiasis
✘ 3. cholera
✔ 4. rabies

Question ID : **441009117693**
Option 1 ID : **441009467965**
Option 2 ID : **441009467964**
Option 3 ID : **441009467966**
Option 4 ID : **441009467967**

Q.5 According to Sigmund Freud's theory of psychosexual development, the psychosexual stage of a person from 6 years to puberty is:

Ans
✘ 1. anal stage
✘ 2. phallic stage
✘ 3. genital stage
✔ 4. latency stage

Question ID : **441009118020**
Option 1 ID : **441009469248**
Option 2 ID : **441009469249**
Option 3 ID : **441009469251**
Option 4 ID : **441009469250**

QuickSarkari.com | WhatsApp Channel | Telegram: t.me/quick_sarkari

Q.6 Which of the following behaviours is typically associated with a person experiencing delusions?

Ans
✗ 1. Repetitive blinking of eyes rapidly without any intention or reasoning behind it
✓ 2. Expressing unrealistic beliefs that they are being persecuted or controlled
✗ 3. Repeatedly washing hands or checking if the door is locked
✗ 4. Withdrawing from social activities

Question ID : **441009132871**
Option 1 ID : **441009528274**
Option 2 ID : **441009528272**
Option 3 ID : **441009528275**
Option 4 ID : **441009528273**

Q.7 All of the following diseases may be spread by contaminated needles, EXCEPT:

Ans
✗ 1. HIV
✗ 2. Hepatitis B
✗ 3. Hepatitis C
✓ 4. Hepatitis A

Question ID : **441009120446**
Option 1 ID : **441009478834**
Option 2 ID : **441009478836**
Option 3 ID : **441009478837**
Option 4 ID : **441009478835**

Q.8 Which of the following tools is used to assess pressure ulcer risk?

Ans
✗ 1. Bishop score
✗ 2. Glasgow scale
✗ 3. Apgar score
✓ 4. Braden scale

Question ID : **441009116043**
Option 1 ID : **441009461589**
Option 2 ID : **441009461588**
Option 3 ID : **441009461590**
Option 4 ID : **441009461591**

Q.9 What sample is used in determining vanillyl mantellic acid to diagnose pheochromocytoma?

Ans
✓ 1. Urine
✗ 2. Blood
✗ 3. CSF
✗ 4. Sputum

Question ID : **441009122668**
Option 1 ID : **441009487581**
Option 2 ID : **441009487584**
Option 3 ID : **441009487582**
Option 4 ID : **441009487583**

QuickSarkari.com | WhatsApp Channel | Telegram: t.me/quick_sarkari

Q.10 Lyme disease is transmitted by the bite of a:

Ans
✗ 1. rat
✗ 2. sandfly
✗ 3. mosquito
✓ 4. ticks

Question ID : **441009122512**
Option 1 ID : **441009486972**
Option 2 ID : **441009486971**
Option 3 ID : **441009486970**
Option 4 ID : **441009486973**

Q.11 Which of the following emergency drugs is commonly used to treat acute bronchospasm?

Ans
✗ 1. Insulin
✓ 2. Deriphylline
✗ 3. Adrenaline
✗ 4. Magnesium Sulphate

Question ID : **441009132846**
Option 1 ID : **441009528174**
Option 2 ID : **441009528173**
Option 3 ID : **441009528175**
Option 4 ID : **441009528172**

Q.12 As per WHO, _____ is the prime natural resource, which every individual should get pure, to maintain the equilibrium between man and environment.

Ans
✓ 1. water
✗ 2. sunlight
✗ 3. air
✗ 4. soil

Question ID : **441009132824**
Option 1 ID : **441009528085**
Option 2 ID : **441009528086**
Option 3 ID : **441009528084**
Option 4 ID : **441009528087**

Q.13 Which coloured bin is used to collect dry and recyclable wastes as per municipal waste disposal guidelines?

Ans
✗ 1. Red
✗ 2. Yellow
✓ 3. Blue
✗ 4. Green

Question ID : **441009117689**
Option 1 ID : **441009467950**
Option 2 ID : **441009467951**
Option 3 ID : **441009467949**
Option 4 ID : **441009467948**

QuickSarkari.com | WhatsApp Channel | Telegram: t.me/quick_sarkari

Q.14 What is the incubation period of hepatitis B?

Ans
✔ 1. 30 to 180 days
✘ 2. 1 to 4 days
✘ 3. 16 to 28 days
✘ 4. 5 to 15 days

Question ID : **441009122493**
Option 1 ID : **441009486897**
Option 2 ID : **441009486894**
Option 3 ID : **441009486896**
Option 4 ID : **441009486895**

Q.15 The National Programme for the Health Care of the Elderly (NPHCE) was launched by the Ministry of Health & Family Welfare in:

Ans
✘ 1. 2004-2005
✘ 2. 2000-2001
✔ 3. 2010-2011
✘ 4. 2007-2008

Question ID : **441009118281**
Option 1 ID : **441009470285**
Option 2 ID : **441009470284**
Option 3 ID : **441009470287**
Option 4 ID : **441009470286**

Q.16 As per the National Immunization Schedule, the first dose of Japanese encephalitis vaccine is administered at _____.

Ans
✘ 1. 16 to 24 months
✘ 2. 6 to 8 months
✔ 3. 9 to 12 months
✘ 4. 3 to 5 months

Question ID : **441009120439**
Option 1 ID : **441009478809**
Option 2 ID : **441009478807**
Option 3 ID : **441009478808**
Option 4 ID : **441009478806**

Q.17 Which of the following diseases is also known as beaver fever?

Ans
✘ 1. Shigella
✘ 2. Salmonella
✔ 3. Giardiasis
✘ 4. Typhoid

Question ID : **441009117790**
Option 1 ID : **441009468353**
Option 2 ID : **441009468354**
Option 3 ID : **441009468355**
Option 4 ID : **441009468352**

QuickSarkari.com | WhatsApp Channel | Telegram: t.me/quick_sarkari

Q.18 Which of the following preservatives is added in the green colour-coded vacutainer?

Ans
✗ 1. EDTA
✗ 2. Sodium fluoride
✓ 3. Heparin
✗ 4. Sodium citrate

Question ID : **441009122627**
Option 1 ID : **441009487417**
Option 2 ID : **441009487415**
Option 3 ID : **441009487416**
Option 4 ID : **441009487414**

Q.19 What is the route of administration of the MMR vaccine?

Ans
✗ 1. Intravenously
✗ 2. Intradermally
✓ 3. Subcutaneously
✗ 4. Orally

Question ID : **441009120435**
Option 1 ID : **441009478792**
Option 2 ID : **441009478791**
Option 3 ID : **441009478790**
Option 4 ID : **441009478793**

Q.20 All of the following are examples of contagious diseases, EXCEPT:

Ans
✗ 1. tuberculosis
✓ 2. asthma
✗ 3. scabies
✗ 4. leprosy

Question ID : **441009117653**
Option 1 ID : **441009467795**
Option 2 ID : **441009467794**
Option 3 ID : **441009467793**
Option 4 ID : **441009467792**

Section : **Discipline3**

QuickSarkari.com | WhatsApp Channel | Telegram: t.me/quick_sarkari

Q.1 The actions and measures that inhibit the emergence of risk factors in the form of environmental, economic, social, and behavioural conditions and cultural patterns of living are included under which of the following levels of prevention?

Ans
✗ 1. Tertiary prevention
✗ 2. Secondary prevention
✗ 3. Primary prevention
✓ 4. Primordial prevention

Question ID : **441009123664**
Option 1 ID : **441009491562**
Option 2 ID : **441009491561**
Option 3 ID : **441009491560**
Option 4 ID : **441009491559**

Q.2 Which of the following disorders is characterised by the abnormal protrusion of the upper part of the stomach or other internal organs through the diaphragm into the chest cavity?

Ans
✗ 1. Umbilical hernia
✗ 2. Inguinal hernia
✓ 3. Hiatal hernia
✗ 4. Incisional hernia

Question ID : **441009117880**
Option 1 ID : **441009468697**
Option 2 ID : **441009468696**
Option 3 ID : **441009468699**
Option 4 ID : **441009468698**

Q.3 Which of the following anti-tubercular medications mainly damages the eighth cranial nerve?

Ans
✓ 1. Streptomycin
✗ 2. Isoniazid
✗ 3. Pyrazinamide
✗ 4. Ethambutol

Question ID : **441009119094**
Option 1 ID : **441009473493**
Option 2 ID : **441009473491**
Option 3 ID : **441009473492**
Option 4 ID : **441009473494**

Q.4 A transient ischemic attack is generally considered as a warning sign of a future _____.

Ans
✗ 1. cardiac arrest
✓ 2. stroke
✗ 3. myocardial infarction
✗ 4. heart failure

Question ID : **441009113685**
Option 1 ID : **441009452231**
Option 2 ID : **441009452233**
Option 3 ID : **441009452230**
Option 4 ID : **441009452232**

QuickSarkari.com | WhatsApp Channel | Telegram: t.me/quick_sarkari

Q.5 All of the following medications is used in the treatment of malaria, EXCEPT:

Ans
✗ 1. primaquine
✗ 2. quinine
✗ 3. chloroquine
✓ 4. dapsone

Question ID : **441009119139**
Option 1 ID : **441009473673**
Option 2 ID : **441009473674**
Option 3 ID : **441009473672**
Option 4 ID : **441009473671**

Q.6 All of the following medications are included in the Drug Kit-B of the sub-centre, EXCEPT:

Ans
✓ 1. Tab. Cotrimoxazole
✗ 2. Tab. Mebendazole
✗ 3. Tab. Methylergometrine
✗ 4. Tab. Dicyclomine

Question ID : **441009118759**
Option 1 ID : **441009472161**
Option 2 ID : **441009472159**
Option 3 ID : **441009472158**
Option 4 ID : **441009472160**

Q.7 In the medication chart of a patient, the nurse found Tab. Augmentin QID. How many times will the tablet be administered in a day?

Ans
✗ 1. Six
✗ 2. Three
✗ 3. Two
✓ 4. Four

Question ID : **441009117451**
Option 1 ID : **441009466973**
Option 2 ID : **441009466971**
Option 3 ID : **441009466970**
Option 4 ID : **441009466972**

Q.8 Which of the following conditions can result in fever?

Ans
✓ 1. Dehydration
✗ 2. Drinking cold water
✗ 3. Lack of sleep
✗ 4. Drinking hot beverages

Question ID : **441009132806**
Option 1 ID : **441009528012**
Option 2 ID : **441009528015**
Option 3 ID : **441009528014**
Option 4 ID : **441009528013**

QuickSarkari.com | WhatsApp Channel | Telegram: t.me/quick_sarkari

Q.9 What is a medical term for difficulty breathing or shortness of breath that only occurs when a person is lying down or in a recumbent position and is relieved by sitting or standing up?

Ans
✗ 1. Tachypnoea
✗ 2. Platypnoea
✓ 3. Orthopnoea
✗ 4. Bradypnoea

Question ID : **441009113778**
Option 1 ID : **441009452597**
Option 2 ID : **441009452595**
Option 3 ID : **441009452594**
Option 4 ID : **441009452596**

Q.10 What is the action of the drug diclofenac sodium?

Ans
✗ 1. Antifungals
✗ 2. Antivirals
✓ 3. Analgesics
✗ 4. Antipyretics

Question ID : **441009113829**
Option 1 ID : **441009452797**
Option 2 ID : **441009452795**
Option 3 ID : **441009452796**
Option 4 ID : **441009452794**

Q.11 What is the normal mid-upper arm circumference for toddlers aged 1-5 years?

Ans
✗ 1. Greater than 7.5 cm
✗ 2. Greater than 11.5 cm
✗ 3. Greater than 9.5 cm
✓ 4. Greater than 13.5 cm

Question ID : **441009113717**
Option 1 ID : **441009452354**
Option 2 ID : **441009452356**
Option 3 ID : **441009452355**
Option 4 ID : **441009452357**

Q.12 Which disease is also known as Enteric fever?

Ans
✗ 1. Dengue
✗ 2. Polio
✗ 3. Measles
✓ 4. Typhoid

Question ID : **441009113598**
Option 1 ID : **441009451889**
Option 2 ID : **441009451887**
Option 3 ID : **441009451886**
Option 4 ID : **441009451888**

QuickSarkari.com | WhatsApp Channel | Telegram: t.me/quick_sarkari

Q.13 What is the main cause of the cholera epidemic?

Ans
✗ 1. Bite of infected rats
✓ 2. Contaminated water supply
✗ 3. Bite of infected mosquitoes
✗ 4. Infected blood transfusion

Question ID : **441009113138**
Option 1 ID : **441009450102**
Option 2 ID : **441009450099**
Option 3 ID : **441009450101**
Option 4 ID : **441009450100**

Q.14 The recommended dose of albendazole for the treatment of worm infestation between the ages of 2 and 19 years by the Government of India is _____.

Ans
✓ 1. 400 mg
✗ 2. 600 mg
✗ 3. 1000 mg
✗ 4. 200 mg

Question ID : **441009132907**
Option 1 ID : **441009528417**
Option 2 ID : **441009528418**
Option 3 ID : **441009528419**
Option 4 ID : **441009528416**

Q.15 Which of the following blood tests is encouraged regularly if a patient is taking anticoagulant medication such as warfarin?

Ans
✓ 1. PT and INR
✗ 2. RBC and MCV
✗ 3. MCH and MCHC
✗ 4. WBC and Hb

Question ID : **441009118459**
Option 1 ID : **441009470999**
Option 2 ID : **441009470997**
Option 3 ID : **441009470998**
Option 4 ID : **441009470996**

Q.16 Which strategy involves the restriction on the movement of people, intended to prevent the spread of disease?

Ans
✗ 1. Immunisation
✗ 2. Fortification
✗ 3. Rehabilitation
✓ 4. Quarantine

Question ID : **441009113218**
Option 1 ID : **441009450408**
Option 2 ID : **441009450407**
Option 3 ID : **441009450409**
Option 4 ID : **441009450410**

QuickSarkari.com | WhatsApp Channel | Telegram: t.me/quick_sarkari

Q.17 The number of deaths in a population during a given time or place is expressed as:

Ans
✗ 1. Morbidity rate
✗ 2. Natality rate
✓ 3. Mortality rate
✗ 4. Fertility rate

Question ID : **441009123652**
Option 1 ID : **441009491514**
Option 2 ID : **441009491511**
Option 3 ID : **441009491512**
Option 4 ID : **441009491513**

Q.18 What is the mechanism of action of Atorvastatin?

Ans
✓ 1. Hypolipidemic agent
✗ 2. Blood thinner
✗ 3. Antihypertensive agent
✗ 4. Hypoglycaemic agent

Question ID : **441009117435**
Option 1 ID : **441009466893**
Option 2 ID : **441009466891**
Option 3 ID : **441009466890**
Option 4 ID : **441009466892**

Q.19 Advise a patient with neurological disorder to include a warm-up period of _____ before starting active exercises.

Ans
✗ 1. 20 minutes
✗ 2. 15 minutes
✓ 3. 5 minutes
✗ 4. 30 minutes

Question ID : **441009132787**
Option 1 ID : **441009527938**
Option 2 ID : **441009527937**
Option 3 ID : **441009527936**
Option 4 ID : **441009527939**

Q.20 The drugs used to control fever are known as:

Ans
✗ 1. analgesics
✓ 2. antipyretics
✗ 3. antitussives
✗ 4. antiemetics

Question ID : **441009113645**
Option 1 ID : **441009452072**
Option 2 ID : **441009452073**
Option 3 ID : **441009452071**
Option 4 ID : **441009452070**

Section : **Discipline4**

QuickSarkari.com | WhatsApp Channel | Telegram: t.me/quick_sarkari

Q.1 Which of the following is an essential practice for maintaining menstrual hygiene?

Ans
✔ 1. Changing sanitary pads every 4 to 6 hours
✘ 2. Wearing dark colour clothes during menstruation
✘ 3. Staying in separate room during menstruation period
✘ 4. Consuming bland diet during menstruation

Question ID : **441009115108**
Option 1 ID : **441009457857**
Option 2 ID : **441009457858**
Option 3 ID : **441009457859**
Option 4 ID : **441009457860**

Q.2 Which of the following groups of organisms are causative factors for oral thrush in bottle fed babies?

Ans
✘ 1. Protozoa
✘ 2. Spirochete
✘ 3. Bacteria
✔ 4. Fungus

Question ID : **441009116539**
Option 1 ID : **441009463569**
Option 2 ID : **441009463570**
Option 3 ID : **441009463567**
Option 4 ID : **441009463568**

Q.3 Where does the Placenta develop from?

Ans
✘ 1. Primary mesoderm
✘ 2. Secondary mesoderm
✔ 3. Chorion frondosum
✘ 4. Syncytiotrophoblast

Question ID : **441009114966**
Option 1 ID : **441009457267**
Option 2 ID : **441009457268**
Option 3 ID : **441009457265**
Option 4 ID : **441009457266**

Q.4 Minimal care at first referral centre/PHC level includes all of the following, EXCEPT:

Ans
✘ 1. there should be regular ANC clinic once a week on fixed days
✔ 2. managing high risk cases at PHC and referring cases requiring cesarean section
✘ 3. register all pregnant women at first trimester of pregnancy
✘ 4. screening of all high-risk cases at PHC for referral to higher centre

Question ID : **441009116340**
Option 1 ID : **441009462793**
Option 2 ID : **441009462795**
Option 3 ID : **441009462792**
Option 4 ID : **441009462794**

QuickSarkari.com | WhatsApp Channel | Telegram: t.me/quick_sarkari

Q.5 Morbidity among mothers that occurs due to pregnancy and its management during the antepartum, intrapartum and postpartum periods is called _____.

Ans
✔ 1. obstetric morbidity
✘ 2. gynecological morbidity
✘ 3. high risk morbidity
✘ 4. contraceptive morbidity

Question ID : **441009116615**
Option 1 ID : **441009463719**
Option 2 ID : **441009463720**
Option 3 ID : **441009463722**
Option 4 ID : **441009463721**

Q.6 The normal body temperature of a newborn baby is between:

Ans
✔ 1. 36°C - 37°C
✘ 2. 30°C - 31°C
✘ 3. 34°C - 35°C
✘ 4. 32°C - 33°C

Question ID : **441009132803**
Option 1 ID : **441009528001**
Option 2 ID : **441009528002**
Option 3 ID : **441009528003**
Option 4 ID : **441009528000**

Q.7 The cause of premature rupture of membrane that occurs beyond the 37th week, but before the onset of labour, is _____.

Ans
✘ 1. big head of the foetus
✘ 2. full dilatation of the cervix
✔ 3. cervical incompetence
✘ 4. oligohydrominas

Question ID : **441009132893**
Option 1 ID : **441009528360**
Option 2 ID : **441009528361**
Option 3 ID : **441009528362**
Option 4 ID : **441009528363**

Q.8 The quadrangular area bounded anteriorly by bregma, posteriorly by lambda and laterally by lines passing through parietal eminences on fetal skull is called _____.

Ans
✘ 1. brow
✔ 2. vertex
✘ 3. face
✘ 4. sinciput

Question ID : **441009120953**
Option 1 ID : **441009480842**
Option 2 ID : **441009480843**
Option 3 ID : **441009480844**
Option 4 ID : **441009480845**

QuickSarkari.com | WhatsApp Channel | Telegram: t.me/quick_sarkari

Q.9 Which of the following is a severe form of diabetic foot disease where the bones in the foot and ankle become damaged, leading to deformities and ulcers?

Ans
✗ 1. Club foot
✓ 2. Charcot Foot
✗ 3. Syme foot
✗ 4. Chopart foot

Question ID : **441009117318**
Option 1 ID : **441009466397**
Option 2 ID : **441009466396**
Option 3 ID : **441009466394**
Option 4 ID : **441009466395**

Q.10 Which of the following is the most accurate and widely used chart to calculate the total body surface area affected by a burn injury?

Ans
✓ 1. Lund and Browder chart
✗ 2. Brooke formula
✗ 3. Parkland chart
✗ 4. Evan formula

Question ID : **441009117663**
Option 1 ID : **441009467835**
Option 2 ID : **441009467832**
Option 3 ID : **441009467834**
Option 4 ID : **441009467833**

Q.11 Which growth parameter is the most critical in detecting early signs of malnutrition in infants?

Ans
✗ 1. Mid-upper arm circumference
✓ 2. Weight-for-age
✗ 3. Head circumference
✗ 4. Height-for-age

Question ID : **441009114866**
Option 1 ID : **441009456868**
Option 2 ID : **441009456865**
Option 3 ID : **441009456866**
Option 4 ID : **441009456867**

Q.12 Which of the following bandages is best suitable for an injured forearm?

Ans
✗ 1. Roller bandage
✗ 2. Elastic bandage
✓ 3. Triangular bandage
✗ 4. Adhesive bandage

Question ID : **441009113431**
Option 1 ID : **441009451233**
Option 2 ID : **441009451231**
Option 3 ID : **441009451232**
Option 4 ID : **441009451234**

QuickSarkari.com | WhatsApp Channel | Telegram: t.me/quick_sarkari

Q.13 According to the World Health Organization (WHO), for how long should infants be exclusively breastfed to achieve optimal growth and development?

Ans
✔ 1. 6 months
✘ 2. 9 months
✘ 3. 12 months
✘ 4. 3 months

Question ID : **441009114936**
Option 1 ID : **441009457146**
Option 2 ID : **441009457147**
Option 3 ID : **441009457148**
Option 4 ID : **441009457145**

Q.14 Which of the following is an example of an aminoglycoside antibiotic?

Ans
✔ 1. Gentamicin
✘ 2. Penicillin
✘ 3. Cephalosporins
✘ 4. Carbapenems

Question ID : **441009118789**
Option 1 ID : **441009472285**
Option 2 ID : **441009472282**
Option 3 ID : **441009472283**
Option 4 ID : **441009472284**

Q.15 What is the safest way to remove a foreign body from the eye?

Ans
✘ 1. Press on the eyelid
✘ 2. Use a cotton swab
✔ 3. Flush with clean water or saline
✘ 4. Rub the eye gently

Question ID : **441009113505**
Option 1 ID : **441009451525**
Option 2 ID : **441009451522**
Option 3 ID : **441009451523**
Option 4 ID : **441009451524**

Q.16 Ultrasound scan during the first trimester helps detect all of the following, EXCEPT:

Ans
✘ 1. gross foetal anomalies
✘ 2. multiple pregnancy
✘ 3. ectopic pregnancy
✔ 4. polyhydramnios

Question ID : **441009116234**
Option 1 ID : **441009462370**
Option 2 ID : **441009462369**
Option 3 ID : **441009462368**
Option 4 ID : **441009462371**

QuickSarkari.com | WhatsApp Channel | Telegram: t.me/quick_sarkari

Q.17 Which of the following is the primary cause of most of the acute respiratory tract infections in children?

Ans
✗ 1. Autoimmune diseases

✗ 2. Poor nutrition

✓ 3. Viral infections

✗ 4. Fungal infections

Question ID : **441009115068**
Option 1 ID : **441009457679**
Option 2 ID : **441009457680**
Option 3 ID : **441009457677**
Option 4 ID : **441009457678**

Q.18 Match Column A with Column B and select the correct sequence from the following.

	Column A		Column B
1.	Pouch of Douglas	A.	Cervix
2.	Portio Vaginalis	B.	Fallopian Tubes
3.	Transportation of Gametes	C.	Ovary
4.	Steroidogenesis	D.	Posterior Fornix

Ans
✓ 1. 1-D, 2-A, 3-B, 4-C

✗ 2. 1-C, 2-B, 3-A, 4-D

✗ 3. 1-B, 2-C, 3-D, 4-A

✗ 4. 1-A, 2-D, 3-C, 4-B

Question ID : **441009114735**
Option 1 ID : **441009456369**
Option 2 ID : **441009456368**
Option 3 ID : **441009456367**
Option 4 ID : **441009456366**

Q.19 A female client visits OPD with a history of missing her periods by 10 days. On detailed history taken she reveals her previous periods were normal and morning sickness is also present. As a midwife, what will be your next course of action?

Ans
✗ 1. Counsel her not to worry

✗ 2. Refer her to a gynaecologist

✓ 3. Get urine pregnancy test done

✗ 4. Ask her to wait till she has her next period

Question ID : **441009115450**
Option 1 ID : **441009459227**
Option 2 ID : **441009459224**
Option 3 ID : **441009459225**
Option 4 ID : **441009459226**

QuickSarkari.com | WhatsApp Channel | Telegram: t.me/quick_sarkari

Q.20 Which technique is used to assist the delivery of the legs and feet in a breech presentation?

Ans
✗ 1. Schultze maneuver
✗ 2. Heimlich's maneuver
✗ 3. McRoberts maneuver
✓ 4. Pinard's maneuver

Question ID : **441009118838**
Option 1 ID : **441009472478**
Option 2 ID : **441009472480**
Option 3 ID : **441009472479**
Option 4 ID : **441009472481**

Section : **Discipline5**

Q.1 Which of the following helps in acquiring knowledge, skills, values, and attitudes that enable individuals to make informed decisions and lead better lives?

Ans
✗ 1. Money
✗ 2. Status
✓ 3. Education
✗ 4. Gender

Question ID : **441009122105**
Option 1 ID : **441009485379**
Option 2 ID : **441009485380**
Option 3 ID : **441009485378**
Option 4 ID : **441009485381**

Q.2 As per RCH services, which of the following is an important component of intra-natal care?

Ans
✗ 1. Family planning services to prevent unplanned pregnancy
✓ 2. Maintains three cleans
✗ 3. Strengthen the referral system
✗ 4. Safe abortion services

Question ID : **441009116856**
Option 1 ID : **441009464551**
Option 2 ID : **441009464554**
Option 3 ID : **441009464553**
Option 4 ID : **441009464552**

Q.3 Oxytocin affects the contraction of the:

Ans
✗ 1. stomach and kidney
✗ 2. liver and gall bladder
✓ 3. uterus and breasts
✗ 4. heart and lungs

Question ID : **441009132791**
Option 1 ID : **441009527952**
Option 2 ID : **441009527955**
Option 3 ID : **441009527954**
Option 4 ID : **441009527953**

QuickSarkari.com | WhatsApp Channel | Telegram: t.me/quick_sarkari

Q.4 Which of the following missions aim to improve the Sex Ratio by ensuring education for girls?

Ans
✗ 1. Lakhpati Didi Scheme
✗ 2. Drone Didi Scheme
✓ 3. The Beti Bachao Beti Padhao (BBBP) scheme
✗ 4. Mission Indradhanush

Question ID : **441009122050**
Option 1 ID : **441009485167**
Option 2 ID : **441009485168**
Option 3 ID : **441009485166**
Option 4 ID : **441009485169**

Q.5 _____ is an operation to make a perforation on the foetal head, to evacuate the contents followed by extraction of the foetus.

Ans
✗ 1. Cleidotomy
✗ 2. Symphysiotomy
✓ 3. Craniotomy
✗ 4. Evisceration

Question ID : **441009119206**
Option 1 ID : **441009473945**
Option 2 ID : **441009473946**
Option 3 ID : **441009473943**
Option 4 ID : **441009473944**

Q.6 The role of ANM in rural areas under safe motherhood initiative is to _____.

Ans
✗ 1. encourage early breast feeding
✗ 2. encourage the use of family planning methods
✓ 3. improve institutional delivery
✗ 4. register pregnancies

Question ID : **441009132839**
Option 1 ID : **441009528146**
Option 2 ID : **441009528144**
Option 3 ID : **441009528147**
Option 4 ID : **441009528145**

Q.7 As per RCH intervention care, _____ is one of the components of safe motherhood.

Ans
✗ 1. safe delivery
✗ 2. treatment of PPH
✗ 3. newborn assessment
✓ 4. early registration of pregnancy

Question ID : **441009132840**
Option 1 ID : **441009528149**
Option 2 ID : **441009528150**
Option 3 ID : **441009528151**
Option 4 ID : **441009528148**

QuickSarkari.com | WhatsApp Channel | Telegram: t.me/quick_sarkari

Q.8 How are STIs caused?

Ans
✔ 1. Transmitted by sexual contact
✘ 2. Air borne transmission
✘ 3. Due to the curse of God
✘ 4. Vector borne transmission

Question ID : **441009120012**
Option 1 ID : **441009477128**
Option 2 ID : **441009477129**
Option 3 ID : **441009477127**
Option 4 ID : **441009477130**

Q.9 A nurse needs to calculate the indent for a medication for 30,000 people, with a prevalence rate 3%; the consumption rate per case is 5 units. Which of the following is the correct indent calculation?

Ans
✔ 1. 4500 units
✘ 2. 1500 units
✘ 3. 9000 units
✘ 4. 3000 units

Question ID : **441009115199**
Option 1 ID : **441009458236**
Option 2 ID : **441009458237**
Option 3 ID : **441009458239**
Option 4 ID : **441009458238**

Q.10 An infection of the genital tract at any time between the onset of rupture of membranes or labour and till 42 days after delivery or abortion is called:

Ans
✘ 1. systemic infection
✘ 2. genital infection
✔ 3. puerperal sepsis
✘ 4. urinary tract infection

Question ID : **441009118794**
Option 1 ID : **441009472304**
Option 2 ID : **441009472305**
Option 3 ID : **441009472302**
Option 4 ID : **441009472303**

Q.11 A midwife is taking the history of a woman who is admitted to the labour room with complaints of pain in the abdomen. The history of labour includes all of the following EXCEPT:

Ans
✘ 1. time of onset of pain
✘ 2. recently ingested food
✘ 3. history of leaking per vagina
✔ 4. pattern of weight gain during pregnancy

Question ID : **441009123863**
Option 1 ID : **441009492351**
Option 2 ID : **441009492353**
Option 3 ID : **441009492352**
Option 4 ID : **441009492354**

QuickSarkari.com | WhatsApp Channel | Telegram: t.me/quick_sarkari

Q.12 Identify the surgical method of induction of abortion.

Ans
✗ 1. Methotrexate and misoprostol
✗ 2. Dinoprostone
✗ 3. Mifepristone and misoprostol
✓ 4. Dilatation and evacuation

Question ID : **441009114704**
Option 1 ID : **441009456243**
Option 2 ID : **441009456245**
Option 3 ID : **441009456242**
Option 4 ID : **441009456244**

Q.13 A pregnant woman with high blood sugar is commonly known as a/an:

Ans
✗ 1. perinatal mother
✓ 2. gestational diabetic mother
✗ 3. gravida mother
✗ 4. antenatal mother

Question ID : **441009132781**
Option 1 ID : **441009527912**
Option 2 ID : **441009527914**
Option 3 ID : **441009527913**
Option 4 ID : **441009527915**

Q.14 _____ is used to treat eclampsia.

Ans
✓ 1. Magnesium sulphate injection
✗ 2. Oxytocin injection
✗ 3. Metronidazole tablet
✗ 4. Misoprostol tablet

Question ID : **441009119428**
Option 1 ID : **441009474834**
Option 2 ID : **441009474831**
Option 3 ID : **441009474833**
Option 4 ID : **441009474832**

Q.15 The _____ health programme aims to eliminate TB in India.

Ans
✗ 1. National Rabies Control Programme(NRCP)
✗ 2. National Vector Borne Diseases Control Programme (NVBDCP)
✓ 3. National Tuberculosis Elimination Programme (NTEP)
✗ 4. National Leprosy Eradication Programme (NLEP)

Question ID : **441009121182**
Option 1 ID : **441009481740**
Option 2 ID : **441009481741**
Option 3 ID : **441009481738**
Option 4 ID : **441009481739**

QuickSarkari.com | WhatsApp Channel | Telegram: t.me/quick_sarkari

Q.16 Which of the following is an abnormal position of the vertex?

Ans
✗ 1. Face presentation
✗ 2. Breech presentation
✓ 3. Occiput posterior position
✗ 4. Occiput anterior position

Question ID : **441009116224**
Option 1 ID : **441009462323**
Option 2 ID : **441009462322**
Option 3 ID : **441009462321**
Option 4 ID : **441009462320**

Q.17 Which of the following is NOT a common post-partum minor ailment?

Ans
✗ 1. Peritoneal pain
✗ 2. Depression
✗ 3. Constipation
✓ 4. Happiness

Question ID : **441009132782**
Option 1 ID : **441009527918**
Option 2 ID : **441009527917**
Option 3 ID : **441009527919**
Option 4 ID : **441009527916**

Q.18 Which of the following drugs is usually given to control bleeding in PPH?

Ans
✗ 1. Magnesium sulphate
✗ 2. Morphine
✓ 3. Oxytocin
✗ 4. Gentamycin

Question ID : **441009119279**
Option 1 ID : **441009474236**
Option 2 ID : **441009474235**
Option 3 ID : **441009474237**
Option 4 ID : **441009474238**

Q.19 Which of the following is a barrier method of contraception?

Ans
✗ 1. Female sterilisation
✗ 2. Body temperature method
✗ 3. Oral contraceptive pills
✓ 4. Condom

Question ID : **441009132862**
Option 1 ID : **441009528239**
Option 2 ID : **441009528238**
Option 3 ID : **441009528237**
Option 4 ID : **441009528236**

QuickSarkari.com | WhatsApp Channel | Telegram: t.me/quick_sarkari

Q.20 The standard dose for anti-D immune globulin is administered to the mother following childbirth is:

Ans
- ✗ 1. 500 mcg
- ✗ 2. 400 mcg
- ✗ 3. 550 mcg
- ✓ 4. 300 mcg

Question ID : **441009113842**
Option 1 ID : **441009452848**
Option 2 ID : **441009452847**
Option 3 ID : **441009452849**
Option 4 ID : **441009452846**

QuickSarkari.com | WhatsApp Channel | Telegram: t.me/quick_sarkari

Quick Sarkari

Thank you for studying with QuickSarkari!

Get the latest Sarkari Naukri notifications, admit cards, results, answer keys and free previous-year papers first - follow us on WhatsApp and Telegram.

Visit www.quicksarkari.com

Join our WhatsApp Channel

https://whatsapp.com/channel/0029VaxxbrREquiPoXTWM229

Join our Telegram Channel

https://t.me/quick_sarkari

Share this PDF with your friends preparing for DSSSB exams.