DSSSB PREVIOUS YEAR PAPER WITH ANSWER KEY

DSSSB Drawing Teacher

29 August 2025 · Shift 2

डीएसएसएसबी ड्राइंग शिक्षक – 29 अगस्त 2025, शिफ्ट 2 का प्रश्न पत्र, उत्तर कुंजी सहित

200	120 min	1 / −0.25	EN + HI
Questions / प्रश्न	Duration / समय	Marks per Q / अंक	Language / भाषा

Sections: General intelligence and Reasoning Ability, General Awareness, Arithmetical and Numerical Ability, English Language and Comprehension, Hindi Language and Comprehension, Drawing Teacher

INSIDE THIS PDF / इस PDF में

Question Paper in English + Hindi with Answer Key (correct option marked in green) + answer table — Page 2–43
प्रश्न पत्र अंग्रेज़ी + हिंदी में, उत्तर कुंजी सहित (सही विकल्प हरे रंग में) + उत्तर तालिका

Official DSSSB Response Sheet with Answer Key (correct option ticked in green) — Page 44–102
आधिकारिक DSSSB रिस्पॉन्स शीट, उत्तर कुंजी सहित (सही विकल्प हरे टिक से)

HOW TO USE THIS PAPER / इस पेपर का उपयोग कैसे करें

1. Attempt the paper first as a timed online mock test (link below).
   पहले नीचे दिए लिंक से इसे टाइमर के साथ ऑनलाइन मॉक टेस्ट के रूप में हल करें।
2. Check your score, section-wise analysis and solutions online.
   ऑनलाइन अपना स्कोर, खंड-वार विश्लेषण और हल देखें।
3. Use this PDF for revision. Correct answers are shown in green.
   दोहराने के लिए इस PDF का उपयोग करें। सही उत्तर हरे रंग में दिए गए हैं।

Attempt this paper as a FREE online mock test
इस पेपर को फ्री ऑनलाइन मॉक टेस्ट के रूप में हल करें – टाइमर, स्कोर और हल के साथ
https://quicksarkari.com/dsssb-drawing-teacher-29-august-2025-shift-2-mock-test/

All DSSSB Drawing Teacher papers and mock tests: **quicksarkari.com/dsssb-mock-test/#drawing-teacher**

Join WhatsApp Channel | Join Telegram Channel

DSSSB Drawing Teacher – Question Paper (English + Hindi)

DSSSB ड्राइंग शिक्षक – प्रश्न पत्र (अंग्रेज़ी + हिंदी)

Exam held on 29 August 2025, Shift 2 · 200 questions · correct answers marked ✔ in green
परीक्षा तिथि 29 अगस्त 2025, शिफ्ट 2 · 200 प्रश्न · सही उत्तर हरे रंग में ✔ से चिह्नित

> The official paper for this shift was in English. The Hindi version of each question is a translation prepared by QuickSarkari; the language-section questions are shown as asked.
> इस शिफ्ट का आधिकारिक प्रश्न पत्र अंग्रेज़ी में था। प्रत्येक प्रश्न का हिंदी संस्करण QuickSarkari द्वारा तैयार किया गया अनुवाद है; भाषा खंड के प्रश्न मूल रूप में दिए गए हैं।

General intelligence and Reasoning Ability

Q.1 Which two numbers should be interchanged to make the following equation correct? (Note: The entire number should be interchanged and not individual digits of a given number.)
(32 − 11) × 4 + (9 × 3) + (7 × 8) + (26 ÷ 2) = 159

निम्नलिखित समीकरण को सही बनाने के लिए किन दो संख्याओं को आपस में बदला जाना चाहिए?
(नोट: पूरी संख्या को आपस में बदला जाना चाहिए, न कि दी गई संख्या के अलग-अलग अंकों को।)
(32 − 11) × 4 + (9 × 3) + (7 × 8) + (26 ÷ 2) = 159

(1) 32 and 26 / 32 और 26 ✔
(2) 8 and 11 / 8 और 11
(3) 11 and 7 / 11 और 7
(4) 4 and 3 / 4 और 3

Q.2 9 is related to 19.8 following a certain logic. Following the same logic, 4 is related to 8.8. To which of the given options is 7 related, following the same logic?
(NOTE: Operations should be performed on the whole numbers, without breaking down the numbers into their constituent digits. E.g. 13 – Operations on 13 such as adding to/subtracting from/multiplying with 13 can be performed. Breaking down 13 into 1 and 3 and then performing mathematical operations on 1 and 3 is not allowed.)

एक निश्चित तर्क के अनुसार 9 का संबंध 19.8 से है। उसी तर्क के अनुसार 4 का संबंध 8.8 से है। उसी तर्क का अनुसरण करते हुए, 7 का संबंध दिए गए विकल्पों में से किससे है?
(नोट: संक्रियाएँ संख्याओं को उनके घटक अंकों में विभाजित किए बिना, पूर्ण संख्याओं पर की जानी चाहिए। उदाहरण के लिए 13 – 13 पर संक्रियाएँ जैसे 13 में जोड़ना/13 में से घटाना/13 से गुणा करना आदि की जा सकती हैं। 13 को 1 और 3 में विभाजित करना और फिर 1 और 3 पर गणितीय संक्रियाएँ करना वर्जित है।)

(1) 14.8
(2) 15.4 ✔
(3) 15.8
(4) 16.4

Q.3 Select the set in which the numbers are related in the same way as are the numbers of the following sets.
(NOTE: Operations should be performed on the whole numbers, without breaking down the numbers into their constituent digits. E.g. 13 – Operations on 13 such as adding to/subtracting from/multiplying with 13 can be performed. Breaking down 13 into 1 and 3 and then performing mathematical operations on 1 and 3 is not allowed.)
(32, 38, 45)
(41, 47, 54)

उस समुच्चय का चयन करें जिसमें संख्याएँ उसी प्रकार संबंधित हैं, जिस प्रकार निम्नलिखित समुच्चयों की संख्याएँ संबंधित हैं।
(नोट: संक्रियाएँ संख्याओं को उनके घटक अंकों में विभाजित किए बिना, पूर्ण संख्याओं पर की जानी चाहिए। उदाहरण के लिए 13 – 13 पर संक्रियाएँ जैसे 13 में जोड़ना/13 में से घटाना/13 से गुणा करना आदि की जा सकती हैं। 13 को 1 और 3 में विभाजित करना और फिर 1 और 3 पर गणितीय संक्रियाएँ करना वर्जित है।)
(32, 38, 45)
(41, 47, 54)

(1) (24, 31, 39)
(2) (48, 53, 59)
(3) (50, 56, 61)
(4) **(39, 45, 52)** ✔

Q.4 Refer to the given number and symbol series and answer the question that follows. Counting to be done from left to right only.
(Left) 1 4 6 # 7 ^ 9 # 2 ! 4 6 % 7 8 # 4 6 1 @ 8 & 6 (Right)
How many such symbols are there, each of which is immediately preceded by an odd number but not immediately followed by an even number?

दी गई संख्या और प्रतीक श्रृंखला को देखें और उसके बाद पूछे गए प्रश्न का उत्तर दें। गिनती केवल बाएँ से दाएँ की जानी है।
(बाएँ) 1 4 6 # 7 ^ 9 # 2 ! 4 6 % 7 8 # 4 6 1 @ 8 & 6 (दाएँ)
ऐसे कितने प्रतीक हैं, जिनमें से प्रत्येक के ठीक पहले एक विषम संख्या है, लेकिन ठीक बाद एक सम संख्या नहीं है?

(1) Zero / शून्य
(2) **One / एक** ✔
(3) Two / दो
(4) Three / तीन

Q.5 Select the correct mirror image of the given figure when the mirror is placed at MN as shown below.

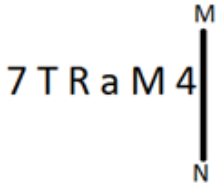

जब दर्पण को नीचे दर्शाए अनुसार MN पर रखा जाता है, तो दी गई आकृति के सही दर्पण प्रतिबिंब का चयन करें।

(1) 
(2) 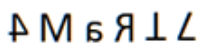
(3) 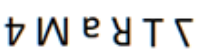
(4)  ✔

Q.6 Select the pair which follows the same pattern as that followed by the two pairs given below.
Both pairs follow the same pattern.
RQJ : PTG QRN : OUK

उस युग्म का चयन करें, जो उसी पैटर्न का अनुसरण करता है जिसका अनुसरण नीचे दिए गए दो युग्म करते हैं।
दोनों युग्म एक ही पैटर्न का अनुसरण करते हैं।
RQJ : PTG QRN : OUK

(1) JHM : HKK
(2) PEL : NHI ✔
(3) KHH : IKF
(4) YBK : WEG

Q.7 What will come in place of the question marrk (?) in the following equation, if '÷' and '−' are interchanged and '×' and '+' are interchanged?
19 ÷ 5 + 4 − 2 × 14 =?

यदि '÷' और '−' को आपस में बदल दिया जाए तथा '×' और '+' को आपस में बदल दिया जाए, तो निम्नलिखित समीकरण में प्रश्न चिह्न (?) के स्थान पर क्या आएगा?
19 ÷ 5 + 4 − 2 × 14 =?

(1) 33
(2) 35
(3) 21
(4) 23 ✔

Q.8 In a certain code language, 'play cricket everyday' is coded as 'nz wf zy' and 'cricket is entertaining' is coded as 'sq rv wf'. How is 'cricket' coded in that language?

एक निश्चित कूट भाषा में, 'play cricket everyday' को 'nz wf zy' के रूप में कूटबद्ध किया जाता है और 'cricket is entertaining' को 'sq rv wf' के रूप में कूटबद्ध किया जाता है। उस भाषा में 'cricket' को किस प्रकार कूटबद्ध किया जाता है?

(1) nz
(2) wf ✔
(3) zy
(4) sq

Q.9 GLPW is related to AFJQ in a certain way based on the English alphabetical order. In the same way, INRY is related to CHLS. To which of the following options is QVZG related, following the same logic?

अंग्रेज़ी वर्णमाला क्रम के आधार पर GLPW एक निश्चित प्रकार से AFJQ से संबंधित है। उसी प्रकार, INRY का संबंध CHLS से है। उसी तर्क का अनुसरण करते हुए, QVZG निम्नलिखित में से किस विकल्प से संबंधित है?

(1) KTAP
(2) KTPA
(3) KPAT
(4) KPTA ✔

Q.10 Morries ranked 91st from the bottom and 65th from the top in his class. How many students are there in his class?

मॉरिस अपनी कक्षा में नीचे से 91वें और ऊपर से 65वें स्थान पर है। उसकी कक्षा में कितने विद्यार्थी हैं?

(1) 101

(2) 146

(3) 98

(4) 155 ✔

Q.11 What should come in place of the question mark (?) in the given series?

7 21 63 189 567 ?

दी गई श्रृंखला में प्रश्न चिह्न (?) के स्थान पर क्या आना चाहिए?

7 21 63 189 567 ?

(1) 1700

(2) 1701 ✔

(3) 1703

(4) 1702

Q.12 Based on the English alphabetical order, three of the following four letter-clusters are alike in a certain way and thus form a group. Which letter-cluster DOES NOT belong to that group? (Note: The odd one out is not based on the number of consonants/vowels or their position in the letter-cluster.)

अंग्रेज़ी वर्णमाला क्रम के आधार पर, निम्नलिखित चार अक्षर-समूहों में से तीन किसी निश्चित प्रकार से एक समान हैं और इस प्रकार एक समूह बनाते हैं। कौन-सा अक्षर-समूह उस समूह से संबंधित नहीं है?

(नोट: असंगत अक्षर-समूह, उस अक्षर-समूह में व्यंजनों/स्वरों की संख्या या उनके स्थान पर आधारित नहीं है।)

(1) GJI

(2) MRQ ✔

(3) JML

(4) SVU

Q.13 Refer to the given number and symbol series and answer the question that follows. Counting to be done from left to right only.

(Left) 3 6 & 8 % 4 # 2 1 @ # 5 7 > & 6 4 3 < 8 7 2 > 7 5 (Right)

How many such symbols are there, each of which is immediately preceded by an odd number but NOT immediately followed by an even number?

दी गई संख्या और प्रतीक श्रृंखला को देखें और उसके बाद पूछे गए प्रश्न का उत्तर दें। गिनती केवल बाएँ से दाएँ की जानी है।

(बाएँ) 3 6 & 8 % 4 # 2 1 @ # 5 7 > & 6 4 3 < 8 7 2 > 7 5 (दाएँ)

ऐसे कितने प्रतीक हैं, जिनमें से प्रत्येक के ठीक पहले एक विषम संख्या है, लेकिन ठीक बाद एक सम संख्या नहीं है?

(1) Four / चार

(2) Three / तीन

(3) One / एक

(4) Two / दो ✔

QuickSarkari.com | WhatsApp Channel | Telegram: t.me/quick_sarkari

Q.14 A, B, C, D, E, F and G are sitting around a circular table facing the centre. A sits third to the left of F. Only one person sits between F and B when counted from the left of B. Only two people sit between D and G when counted from the right of G. E is an immediate neighbour of D. Who sits third to the right of C?

A, B, C, D, E, F और G एक वृत्ताकार मेज़ के चारों ओर केंद्र की ओर मुख करके बैठे हैं। A, F के बाएँ से तीसरे स्थान पर बैठा है। जब B के बाएँ से गिना जाए, तो F और B के बीच केवल एक व्यक्ति बैठा है। जब G के दाएँ से गिना जाए, तो D और G के बीच केवल दो व्यक्ति बैठे हैं। E, D का निकटतम पड़ोसी है। C के दाएँ से तीसरे स्थान पर कौन बैठा है?

(1) A ✔
(2) E
(3) G
(4) B

Q.15 In a certain code language, 'money make rich' is coded as 'xj kd io', and 'some rich have' is coded as 'ng ik io'. How is 'rich' coded in that language? (All codes are two-letter codes.)

एक निश्चित कूट भाषा में, 'money make rich' को 'xj kd io' के रूप में कूटबद्ध किया जाता है, और 'some rich have' को 'ng ik io' के रूप में कूटबद्ध किया जाता है। उस भाषा में 'rich' को किस प्रकार कूटबद्ध किया जाता है? (सभी कूट दो अक्षरों वाले कूट हैं।)

(1) kd
(2) io ✔
(3) xj
(4) ng

Q.16 Read the given statement(s) and conclusions carefully. Assuming that the information given in the statement(s) is true, even if it appears to be at variance with commonly known facts, decide which of the given conclusions logically follow(s) from the statement(s).
Statements:
All potatoes are tomatoes.
Some tomatoes are yellow.
All yellow are capsicums.
Conclusion:
(I) Some tomatoes are capsicums.
(II) Some potatoes are tomatoes.

दिए गए कथन(नों) और निष्कर्षों को ध्यानपूर्वक पढ़ें। यह मानते हुए कि कथन(नों) में दी गई जानकारी सत्य है, भले ही वह सामान्यतः ज्ञात तथ्यों से भिन्न प्रतीत होती हो, निर्णय लें कि दिए गए निष्कर्षों में से कौन-सा/से निष्कर्ष तार्किक रूप से कथन(नों) का अनुसरण करता है/करते हैं।
कथन:
सभी आलू, टमाटर हैं।
कुछ टमाटर, पीले हैं।
सभी पीले, शिमला मिर्च हैं।
निष्कर्ष:
(I) कुछ टमाटर, शिमला मिर्च हैं।
(II) कुछ आलू, टमाटर हैं।

(1) Only conclusion (I) follows. / केवल निष्कर्ष (I) अनुसरण करता है।
(2) Only conclusion (II) follows. / केवल निष्कर्ष (II) अनुसरण करता है।
(3) Both conclusion (I) and (II) follow. / निष्कर्ष (I) और (II) दोनों अनुसरण करते हैं। ✔
(4) Neither conclusion (I) nor (II) follows. / न तो निष्कर्ष (I) और न ही (II) अनुसरण करता है।

QuickSarkari.com | WhatsApp Channel | Telegram: t.me/quick_sarkari

Q.17 J, K, L, O, P and Q live on six different floors of the same building. The lowermost floor in the building is numbered 1, the floor above it is numbered 2 and so on till the topmost floor is numbered 6. Only two people live between Q and J. Only two people live between K and O. No one lives above K. J lives below O but above P. How many people live below L?

J, K, L, O, P और Q एक ही इमारत की छह अलग-अलग मंज़िलों पर रहते हैं। इमारत की सबसे निचली मंज़िल को संख्या 1 दी गई है, उसके ऊपर वाली मंज़िल को संख्या 2 दी गई है और इसी प्रकार सबसे ऊपरी मंज़िल को संख्या 6 दी गई है। Q और J के बीच केवल दो व्यक्ति रहते हैं। K और O के बीच केवल दो व्यक्ति रहते हैं। K के ऊपर कोई नहीं रहता है। J, O के नीचे लेकिन P के ऊपर रहता है। L के नीचे कितने व्यक्ति रहते हैं?

(1) Two / दो
(2) **Three / तीन ✔**
(3) One / एक
(4) Four / चार

Q.18 What should come in place of the question mark (?) in the given series?
49 52 57 60 65 ?

दी गई श्रृंखला में प्रश्न चिह्न (?) के स्थान पर क्या आना चाहिए?
49 52 57 60 65 ?

(1) **68 ✔**
(2) 67
(3) 70
(4) 69

Q.19 Based on the English alphabetical order, three of the following four letter-clusters are alike in a certain way and thus form a group. Which letter-cluster DOES NOT belong to that group? (Note: The odd one out is not based on the number of consonants/vowels or their position in the letter-cluster.)

अंग्रेज़ी वर्णमाला क्रम के आधार पर, निम्नलिखित चार अक्षर-समूहों में से तीन किसी निश्चित प्रकार से एक समान हैं और इस प्रकार एक समूह बनाते हैं। कौन-सा अक्षर-समूह उस समूह से संबंधित नहीं है?
(नोट: असंगत अक्षर-समूह, उस अक्षर-समूह में व्यंजनों/स्वरों की संख्या या उनके स्थान पर आधारित नहीं है।)

(1) **UZB ✔**
(2) TXA
(3) QUX
(4) DHK

Q.20 In a certain code language, 'A + B' means 'A is the father of B', 'A – B' means 'A is the sister of B', 'A × B' means 'A is the husband of B' and 'A ÷ B' means 'A is the son of B'.
Based on the above information, how is K related to A if 'B × E – A + R ÷ K'?

एक निश्चित कूट भाषा में, 'A + B' का अर्थ है 'A, B का पिता है', 'A – B' का अर्थ है 'A, B की बहन है', 'A × B' का अर्थ है 'A, B का पति है' और 'A ÷ B' का अर्थ है 'A, B का पुत्र है'।
उपरोक्त जानकारी के आधार पर, यदि 'B × E – A + R ÷ K' है, तो K का A से क्या संबंध है?

(1) Son's daughter / पुत्र की पुत्री
(2) Sister / बहन
(3) **Wife / पत्नी ✔**
(4) Daughter / पुत्री

General Awareness

Q.21 On which of the following dates is the International Day of Non-Violence observed?
अंतर्राष्ट्रीय अहिंसा दिवस निम्नलिखित में से किस तिथि को मनाया जाता है?

(1) 2 November / 2 नवंबर
(2) 2 December / 2 दिसंबर
(3) 2 January / 2 जनवरी
(4) **2 October / 2 अक्टूबर ✔**

Q.22 What is the length of India's coastline in the mainland?
मुख्य भूमि में भारत की तटरेखा की लंबाई कितनी है?

(1) 6,548 km
(2) **6,100 km ✔**
(3) 7,215 km
(4) 7,517 km

Q.23 If the general price level increases, the purchasing power of money:
यदि सामान्य कीमत स्तर बढ़ता है, तो मुद्रा की क्रय शक्ति:

(1) Increases / बढ़ती है
(2) Doubles / दोगुनी हो जाती है
(3) **Decreases / घटती है ✔**
(4) Stays the same / समान रहती है

Q.24 Which of the following mountain ranges defines India's northern boundary?
निम्नलिखित में से कौन-सी पर्वत श्रृंखला भारत की उत्तरी सीमा निर्धारित करती है?

(1) The Aravalli Range / अरावली पर्वतमाला
(2) **The Himalayas / हिमालय ✔**
(3) The Eastern Ghats / पूर्वी घाट
(4) The Western Ghats / पश्चिमी घाट

Q.25 Defence Secretary Rajesh Kumar Singh launched the Rashtraparv Website along with its Mobile App on Dec 25, 2024 on the occasion of 'Good Governance Day' commemorating the birth anniversary of former Prime Minister _____.
रक्षा सचिव राजेश कुमार सिंह ने पूर्व प्रधानमंत्री _____ की जयंती के उपलक्ष्य में 'सुशासन दिवस' के अवसर पर 25 दिसंबर, 2024 को राष्ट्रपर्व वेबसाइट और उसके मोबाइल ऐप का शुभारंभ किया।

(1) Inder Kumar Gujral / इंद्र कुमार गुजराल
(2) Haradanahalli Doddegowda Deve Gowda / हरदनहल्ली डोड्डेगौड़ा देवेगौड़ा
(3) **Atal Bihari Vajpayee / अटल बिहारी वाजपेयी ✔**
(4) Vishwanath Pratap Singh / विश्वनाथ प्रताप सिंह

Q.26 In which year was Odia given Classical Language status?
ओडिया को शास्त्रीय भाषा का दर्जा किस वर्ष दिया गया था?

(1) 2011
(2) 2015
(3) 2012
(4) **2014 ✔**

Q.27 The Caves of Bhimbetka in Madhya Pradesh are famous for _____.

मध्य प्रदेश में स्थित भीमबेटका की गुफाएँ _____ के लिए प्रसिद्ध हैं।

(1) Rock-cut temples / शैलकृत मंदिरों

(2) Ancient manuscripts / प्राचीन पांडुलिपियों

(3) Buddhist stupas / बौद्ध स्तूपों

(4) **Rock paintings / शैल चित्रों ✔**

Q.28 Which of the following is NOT among the five-kingdom classification proposed by RH Whittaker?

निम्नलिखित में से कौन-सा, आर.एच. व्हिटेकर द्वारा प्रस्तावित पाँच जगत वर्गीकरण में शामिल नहीं है?

(1) Monera / मोनेरा

(2) Fungi / कवक (फंजाई)

(3) **Xylem / जाइलम ✔**

(4) Protista / प्रोटिस्टा

Q.29 In which of the following states is Kannada used as the official language?

निम्नलिखित में से किस राज्य में कन्नड़ का प्रयोग आधिकारिक भाषा के रूप में किया जाता है?

(1) Andhra Pradesh / आंध्र प्रदेश

(2) Tamil Nadu / तमिलनाडु

(3) **Karnataka / कर्नाटक ✔**

(4) Kerala / केरल

Q.30 Where was the first meeting of the Indian National Congress held?

भारतीय राष्ट्रीय कांग्रेस की पहली बैठक कहाँ आयोजित की गई थी?

(1) Calcutta / कलकत्ता

(2) Delhi / दिल्ली

(3) **Bombay / बंबई ✔**

(4) Madras / मद्रास

Q.31 When were the Minto Morley Reforms passed by the British Parliament?

मिंटो-मॉर्ले सुधार ब्रिटिश संसद द्वारा कब पारित किए गए थे?

(1) **1909 ✔**

(2) 1908

(3) 1911

(4) 1910

Q.32 Indian Air Force approved the production of Astra Mark-1(MK-1) missile. Which of the following types of missile is Astra Mark-1?

भारतीय वायु सेना ने अस्त्र मार्क-1 (MK-1) मिसाइल के उत्पादन को स्वीकृति दी। अस्त्र मार्क-1 निम्नलिखित में से किस प्रकार की मिसाइल है?

(1) **Air to Air / हवा से हवा में ✔**

(2) Surface to Air / सतह से हवा में

(3) Surface to Surface / सतह से सतह पर

(4) Air to Surface / हवा से सतह पर

Q.33 Which of the following statements are correct?
1. Workers that are engaged by someone or an enterprise and are paid their wages on a regular basis are called regular salaried employees.
2. Workers who own and operate an enterprise to earn their livelihood are called self- employed.
3. Construction workers are called casual wage labourers.

निम्नलिखित में से कौन-से कथन सही हैं?
1. वे श्रमिक जिन्हें किसी व्यक्ति या उद्यम द्वारा काम पर रखा जाता है और जिन्हें नियमित रूप से मज़दूरी का भुगतान किया जाता है, नियमित वेतनभोगी कर्मचारी कहलाते हैं।
2. वे श्रमिक जो अपनी आजीविका कमाने के लिए किसी उद्यम के स्वामी होते हैं और उसका संचालन करते हैं, स्व-नियोजित कहलाते हैं।
3. निर्माण श्रमिकों को अनियत मज़दूरी वाले श्रमिक कहा जाता है।

(1) Only 2 and 3 / केवल 2 और 3
(2) 1, 2 and 3 / 1, 2 और 3 ✔
(3) Only 1 and 3 / केवल 1 और 3
(4) Only 1 and 2 / केवल 1 और 2

Q.34 The 78th Senior National Aquatic Championships (Swimming) were conducted in June 2025 in which of the following cities?
78वीं सीनियर राष्ट्रीय जलीय चैंपियनशिप (तैराकी) जून 2025 में निम्नलिखित में से किस शहर में आयोजित की गई थी?

(1) Ahmedabad / अहमदाबाद
(2) Bhubaneswar / भुवनेश्वर ✔
(3) Bengaluru / बेंगलुरु
(4) New Delhi / नई दिल्ली

Q.35 Which of the following diseases, usually caused by vitamin B1 deficiency, exhibits loss of muscle function or paralysis of lower limbs as common symptoms?
सामान्यतः विटामिन B1 की कमी से होने वाले निम्नलिखित में से किस रोग में मांसपेशियों की कार्यक्षमता में कमी या निचले अंगों का पक्षाघात सामान्य लक्षणों के रूप में दिखाई देते हैं?

(1) Beri-beri / बेरी-बेरी ✔
(2) Scurvy / स्कर्वी
(3) Pellagra / पेलाग्रा
(4) Pernicious anemia / प्रणाशी रक्ताल्पता (पर्निशियस एनीमिया)

Q.36 Which of the following age groups of women is generally taken while calculating the 'Fertility Rate'?
'प्रजनन दर' की गणना करते समय सामान्यतः महिलाओं का निम्नलिखित में से कौन-सा आयु वर्ग लिया जाता है?

(1) 15 to 49 years / 15 से 49 वर्ष ✔
(2) 21 to 45 years / 21 से 45 वर्ष
(3) 18 to 59 years / 18 से 59 वर्ष
(4) 13 to 45 years / 13 से 45 वर्ष

Q.37 The impeachment charges on the President of India can be initiated in either House of Parliament. These charges should be signed by _____ of members of that particular House.

भारत के राष्ट्रपति पर महाभियोग के आरोप संसद के किसी भी सदन में प्रारंभ किए जा सकते हैं। इन आरोपों पर उस सदन के _____ सदस्यों के हस्ताक्षर होने चाहिए।

(1) one-third / एक-तिहाई

(2) **one-fourth / एक-चौथाई ✔**

(3) one-sixth / एक-छठे

(4) one-tenth / एक-दसवें

Q.38 Which of the following concepts was NOT present in the Preamble of the Indian Constitution before 1976?

निम्नलिखित में से कौन-सी अवधारणा 1976 से पहले भारतीय संविधान की प्रस्तावना में उपस्थित नहीं थी?

(1) Sovereign / संप्रभु

(2) **Socialist / समाजवादी ✔**

(3) Democratic / लोकतांत्रिक

(4) Justice / न्याय

Q.39 What is the difference between the interest rate paid by banks to depositors and the interest rate charged from borrowers called?

बैंकों द्वारा जमाकर्ताओं को दी जाने वाली ब्याज दर और उधारकर्ताओं से ली जाने वाली ब्याज दर के बीच के अंतर को क्या कहा जाता है?

(1) Profit margin / लाभ मार्जिन

(2) **Spread / स्प्रेड (अंतर) ✔**

(3) Cash reserve / नकद आरक्षित निधि

(4) Liquidity ratio / तरलता अनुपात

Q.40 Which of the following statements is/are correct regarding the executive powers of the Union vested in the President of India?

1. Article 53 deals with the executive powers of the President of India.
2. Article 75 requires the Prime Minister to communicate to the President regarding all decisions of the Union Council of Ministers.
3. Article 77 holds that all executive powers of the Union government shall be exercised in the name of the President.

भारत के राष्ट्रपति में निहित संघ की कार्यकारी शक्तियों के संबंध में निम्नलिखित में से कौन-सा/से कथन सही है/हैं?

1. अनुच्छेद 53 भारत के राष्ट्रपति की कार्यकारी शक्तियों से संबंधित है।
2. अनुच्छेद 75 के अनुसार प्रधानमंत्री को संघ की मंत्रिपरिषद के सभी निर्णयों के बारे में राष्ट्रपति को सूचित करना आवश्यक है।
3. अनुच्छेद 77 के अनुसार संघ सरकार की सभी कार्यकारी शक्तियों का प्रयोग राष्ट्रपति के नाम से किया जाएगा।

(1) **Only 1 and 3 / केवल 1 और 3 ✔**

(2) 1, 2 and 3 / 1, 2 और 3

(3) Only 1 and 2 / केवल 1 और 2

(4) Only 2 and 3 / केवल 2 और 3

Arithmetical and Numerical Ability

Q.41 The arithmetic mean of the observations 13, 46, 21, 47, 43, 51, 11, 82 and 28 is:6397

प्रेक्षणों 13, 46, 21, 47, 43, 51, 11, 82 और 28 का समांतर माध्य है:6397

(1) 30

(2) **38** ✔

(3) 35

(4) 45

Q.42 Find the simple interest (in ₹) on ₹2,000 as a sum borrowed at 9% per year rate of interest for 5 years.

₹2,000 की उधार ली गई राशि पर 9% वार्षिक ब्याज दर से 5 वर्ष का साधारण ब्याज (₹ में) ज्ञात कीजिए।

(1) **900** ✔

(2) 940

(3) 840

(4) 860

Q.43 A man purchases 200 items at ₹150 each. He sells 80 of them at a 10% profit, 60 of them at a 15% profit, and the remaining 60 at a 20% profit. What is the overall profit percentage on the total cost price?

एक व्यक्ति ₹150 प्रति वस्तु की दर से 200 वस्तुएँ खरीदता है। वह उनमें से 80 वस्तुएँ 10% लाभ पर, 60 वस्तुएँ 15% लाभ पर और शेष 60 वस्तुएँ 20% लाभ पर बेचता है। कुल क्रय मूल्य पर समग्र लाभ प्रतिशत कितना है?

(1) 12.5%

(2) 16.5%

(3) **14.5%** ✔

(4) 13.5%

Q.44 Calculate the surface area of a spherical water tank of radius 21 cm. (Use π = 22/7)

21 cm त्रिज्या वाली एक गोलाकार पानी की टंकी का पृष्ठीय क्षेत्रफल परिकलित कीजिए। (π = 22/7 का उपयोग कीजिए)

(1) 5294 cm^2

(2) 5758 cm^2

(3) **5544 cm^2** ✔

(4) 5344 cm^2

Q.45 Rajni scored twice as many marks as Preeti in an exam. What percentage of Rajni's marks did Preeti score?

एक परीक्षा में रजनी ने प्रीति से दोगुने अंक प्राप्त किए। प्रीति ने रजनी के अंकों का कितना प्रतिशत प्राप्त किया?

(1) 100%

(2) 25%

(3) **50%** ✔

(4) 75%

Q.46 If the marked price of a bedcover is 50% more than its cost price and a discount of 10% is announced on it, then find the profit percentage.

यदि एक चादर (बेडकवर) का अंकित मूल्य उसके क्रय मूल्य से 50% अधिक है और उस पर 10% की छूट की घोषणा की जाती है, तो लाभ प्रतिशत ज्ञात कीजिए।

(1) 37%

(2) 38%

(3) 35% ✔

(4) 34%

Q.47 Observe the given multiple bar graph showing the income and expenditure (in ₹ crores) of five companies and answer the question that follows.

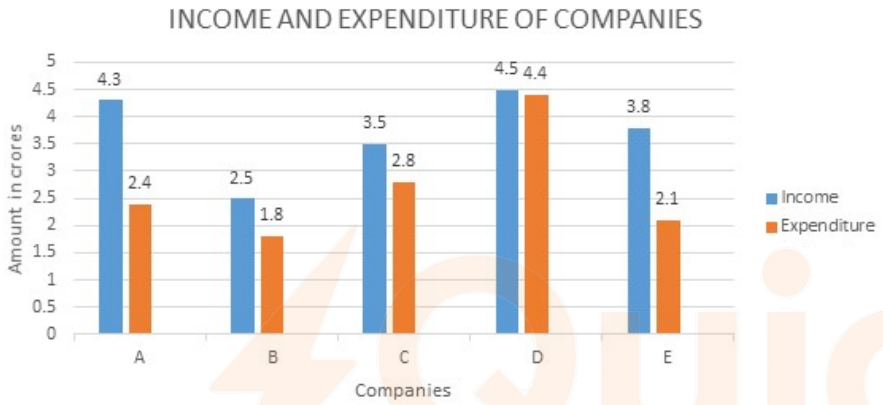

The difference in the savings of Company A and Company C (in ₹ crores) is:

पाँच कंपनियों की आय और व्यय (₹ करोड़ में) को दर्शाने वाले दिए गए बहु-दंड आलेख का अवलोकन करें और उसके बाद पूछे गए प्रश्न का उत्तर दें।
कंपनी A और कंपनी C की बचत में अंतर (₹ करोड़ में) है:

(1) 1.6

(2) 1.8

(3) 1.2 ✔

(4) 1.4

Q.48 A and B can do a piece of work in 5 days. B and C can do the same work in 7 days, while C and A can do it in 10 days. Find the time in which A, B and C can finish the work, working together.

A और B किसी काम को 5 दिनों में कर सकते हैं। B और C उसी काम को 7 दिनों में कर सकते हैं, जबकि C और A उसे 10 दिनों में कर सकते हैं। A, B और C एक साथ मिलकर काम करते हुए उस काम को कितने समय में पूरा कर सकते हैं, ज्ञात कीजिए।

(1) 2 16/31 days / 2 16/31 दिन

(2) 4 16/31 days / 4 16/31 दिन ✔

(3) 3 16/31 days / 3 16/31 दिन

(4) 1 16/31 days / 1 16/31 दिन

Q.49 The fourth proportional to 18, a and 3a is 24. What is the positive value of a?

18, a और 3a का चतुर्थानुपाती 24 है। a का धनात्मक मान क्या है?

(1) 15

(2) 12 ✔

(3) 14

(4) 9

QuickSarkari.com | WhatsApp Channel | Telegram: t.me/quick_sarkari

Q.50 If the surface area of a sphere is 9856 cm^2, then find the radius of the sphere in cm. (Use π = 22/7)

यदि एक गोले का पृष्ठीय क्षेत्रफल 9856 cm^2 है, तो गोले की त्रिज्या cm में ज्ञात कीजिए।
(π = 22/7 का प्रयोग करें)

(1) 29
(2) 27
(3) 26
(4) 28 ✔

Q.51 If the price of a book is first decreased by 16% and then increased by 25%, then the net change in the price will be:

यदि किसी पुस्तक के मूल्य में पहले 16% की कमी की जाती है और फिर 25% की वृद्धि की जाती है, तो मूल्य में निवल परिवर्तन होगा:

(1) 5% increase / 5% वृद्धि ✔
(2) 2.5% decrease / 2.5% कमी
(3) 2.5% increase / 2.5% वृद्धि
(4) 5% decrease / 5% कमी

Q.52 The fourth proportion to 2, 9 and 8 is the same as the third proportion to A and 24. What is the value of A?

2, 9 और 8 का चतुर्थानुपाती, A और 24 के तृतीयानुपाती के समान है। A का मान क्या है?

(1) 13
(2) 19
(3) 14
(4) 16 ✔

Q.53 The square root of 1225 is:

1225 का वर्गमूल है:

(1) 43
(2) 55
(3) 35 ✔
(4) 45

Q.54 The value of $7^3 - 7^2 + (6/2)^2 - 5 + 7 \times 8$ = _____

$7^3 - 7^2 + (6/2)^2 - 5 + 7 \times 8$ का मान = _____

(1) 362
(2) 354 ✔
(3) 363
(4) 360

Q.55 Manoj goes to the railway station at a speed of 19 km/hr and returns home with a speed of 10 km/hr. If the total time for the journey is 3 hours, 28 minutes and 48 seconds, then find the distance between the house and the railway station.

मनोज 19 km/hr की चाल से रेलवे स्टेशन जाता है और 10 km/hr की चाल से घर लौटता है। यदि यात्रा का कुल समय 3 घंटे, 28 मिनट और 48 सेकंड है, तो घर और रेलवे स्टेशन के बीच की दूरी ज्ञात कीजिए।

(1) 21.4 km

(2) **22.8 km** ✔

(3) 25 km

(4) 24.5 km

Q.56 The average weight of five rice sacks is 286.4 kg. The average weight of two rice sacks is 331 kg and the average weight of other two rice sacks is 324.5 kg. Therefore, the weight (in kg) of the remaining fifth rice sack is

चावल की पाँच बोरियों का औसत भार 286.4 kg है। चावल की दो बोरियों का औसत भार 331 kg है और अन्य दो बोरियों का औसत भार 324.5 kg है। अतः, चावल की शेष पाँचवीं बोरी का भार (kg में) है

(1) 186

(2) 111

(3) **121** ✔

(4) 221

Q.57 A man goes to Rajkot from Kalyan-Dombivli at a speed of 72km/hr and returns to Kalyan- Dombivli at speed of 90km/hr, through same route. What is his average speed (in km/hr) of the entire journey?

एक व्यक्ति कल्याण-डोंबिवली से राजकोट 72km/hr की चाल से जाता है और उसी मार्ग से 90km/hr की चाल से कल्याण-डोंबिवली लौटता है। पूरी यात्रा में उसकी औसत चाल (km/hr में) क्या है?

(1) 76

(2) 78

(3) **80** ✔

(4) 86

Q.58 A and B can do a job in 12 days and 15 days, respectively. A works alone for 4 days and leaves. The number of days required by B to complete the remaining job is:

A और B किसी काम को क्रमशः 12 दिनों और 15 दिनों में कर सकते हैं। A अकेले 4 दिनों तक काम करता है और छोड़ देता है। शेष काम को पूरा करने के लिए B द्वारा आवश्यक दिनों की संख्या है:

(1) **10** ✔

(2) 6

(3) 12

(4) 8

Q.59 The ratio of the cost prices of articles X and Y is 3 : 5. A man earns a profit of 25% by selling X and loses 25% by selling Y. What is his gain/loss percentage in the entire transaction?

वस्तुओं X और Y के क्रय मूल्यों का अनुपात 3 : 5 है। एक व्यक्ति X को बेचकर 25% लाभ अर्जित करता है और Y को बेचकर 25% हानि उठाता है। पूरे लेन-देन में उसका लाभ/हानि प्रतिशत क्या है?

(1) **Loss, 6.25% / हानि, 6.25%** ✔

(2) Loss, 5.75% / हानि, 5.75%

(3) Gain, 6.25% / लाभ, 6.25%

(4) Gain, 7.75% / लाभ, 7.75%

QuickSarkari.com | WhatsApp Channel | Telegram: t.me/quick_sarkari

Q.60 In 2015, the population of a village was 25,000. The population has been increasing every year at a rate of 25% from 2010 to 2020. Find the ratio of the population in 2016 to the population in 2014.

2015 में, एक गाँव की जनसंख्या 25,000 थी। 2010 से 2020 तक जनसंख्या प्रति वर्ष 25% की दर से बढ़ रही है। 2016 की जनसंख्या और 2014 की जनसंख्या का अनुपात ज्ञात कीजिए।

(1) 18 : 11

(2) 16 : 9

(3) **25 : 16 ✔**

(4) 22 : 15

English Language and Comprehension

Q.61 Select the most appropriate option that can substitute the underlined segment in the given sentence.
The opposition party machinated an unscrupulous plan to tarnish the government's image.

(1) Virtuous

(2) Conscientious

(3) Uncrooked

(4) **Machiavellian ✔**

Q.62 Select the most appropriate option to fill in the blank.
No one can surpass Chinki as she is the _____.

(1) better

(2) crazy

(3) good

(4) **best ✔**

Q.63 Select the most appropriate ANTONYM of the given word.
Expand

(1) **Contract ✔**

(2) Inflate

(3) Lengthen

(4) Conceal

Q.64 Select the grammatically correct sentence.

(1) He looked at a moon.

(2) **He looked at the moon. ✔**

(3) He looked at an moon.

(4) He looked at moon.

Q.65 Sentences of a paragraph are given below. While the first and the last sentences (A1 and A6) are in the correct order, the sentences in between are jumbled up. Arrange the sentences in the correct order to form a meaningful and coherent paragraph.

A1. The process of rearing silkworms and extracting the silk from them is called sericulture.

P. Silk is a very popular fabric due to its softness and luster.

Q. The word silk is derived from Greek term, Sioloc.

R. Among various species of silkworms known for commercial purpose, Bombyx Mori is the most extensively cultivated one.

S. It is the caterpillar of domestic silk moth and is known for its shine and sheen.

A6. It is known as resham in north and east India and pattu in south India.

(1) PQRS ✔

(2) SRQP

(3) RSPQ

(4) QRSP

Q.66 Select the idiom that conveys the same meaning as the underlined segment in the given sentence.

Our neighbours are always quarrelling and have disagreements over trivial matters.

(1) Break a leg

(2) Beat around the bush

(3) Through thick and thin

(4) At loggerheads ✔

Q.67 Sentences of a paragraph are given below. While the first and the last sentences (A1 and A6) are in the correct order, the sentences in between are jumbled up. Arrange the sentences in the correct order to form a meaningful and coherent paragraph.

A1. Cotton is grown in both tropical and subtropical environment across a country in different soil types.

P. However, Gujarat and Maharashtra lead the tally of cotton production in the country because of climatic conditions.

Q. It ranges from Punjab in North to Tamil Nadu in south in India.

R. Cotton mostly requires well drained soil and an optimal temperature of 20 to 27°C.

S. On the contrary, India has different soil ranging from alluvial in north, red in south, muddy black soil which foster the growth of the crop.

A6. It is a kharif crop and takes six to eight months to complete its production cycle.

(1) PQRS

(2) RSPQ ✔

(3) QPRS

(4) PQSR

Q.68 Select the idiom that conveys the same meaning as the underlined segment in the given sentence.

Climbing this mountain is really easy, even for small kids!

(1) A piece of cake ✔

(2) Better late than never

(3) A blessing in disguise

(4) Kill two birds with a stone

Q.69 Select the most appropriate ANTONYM of the given word.
Decipher

(1) Misunderstand ✔
(2) Decrypt
(3) Equivocal
(4) Assimilate

Q.70 Select the option that rectifies the given INCORRECTLY spelt word.
Pneumounia

(1) Pneumoniaa
(2) Neumonia
(3) Pneumonie
(4) Pneumonia ✔

Q.71 Select the most appropriate adjective to fill in the blank.
It's tough to maintain _____ crockery in the house.

(1) brakeable
(2) breaked
(3) breaking
(4) breakable ✔

Q.72 Select the most appropriate option that can substitute the underlined segment in the given sentence. If there is no need to substitute it, select 'No substitution required'.
My father has seen the much of the plays of Shakespeare acted.

(1) more
(2) most ✔
(3) No substitution required
(4) the little

Q.73 Parts of the following sentence have been given as options. Select the option that contains an error.
An Swedish have / one of the best / parental leave / policies in the world.

(1) one of the best
(2) policies in the world
(3) An Swedish have ✔
(4) parental leave

Q.74 Select the most appropriate option to fill in the blanks.
In a chemical reaction, the _____ are the substances which undergo certain changes and the _____ are formed as a result of the reaction.

(1) reagent ; upshot
(2) elements ; by product
(3) catalysts ; stimulants
(4) reactants ; products ✔

Q.75 Select the most appropriate option that can substitute the underlined segment in the given sentence. If there is no need to substitute it, select 'No substitution required'.
The news is so better as it just can't be true.

(1) so good too
(2) No substitution required
(3) **too good to ✔**
(4) as good to

Q.76

Read the given passage and answer the questions that follow.
The book features everything, from main courses to desserts. Readers likely have the ingredients on hand, making the dishes quick to whip up even if you have no time to head to the store first. Oliver says that as times change, so does peoples' relationship with cooking. He says the average consumer relies on takeout more often and doesn't want a long grocery list or a meal that takes hours to prepare. Oliver says one of the main goals of writing this book was to make fresh, home-cooked meals approachable and attainable for people of all class statuses. "Technology in life is changing our lifestyles. And of course, the food industry wants to fix everything for you. And what happens when that happens is people forget how to cook. And we know that when people forget how to cook, they're not so well," Oliver says. "For me, cooking isn't just about joy and the gorgeousness of serving people that you love, but also it's kind of political and it's about our kids and it's about our futures."

From the given options, identify the suitable title for the passage.

(1) Goals of writing book
(2) Technology is life changing
(3) Relying on take-out
(4) **Relationship with cooking ✔**

Q.77

Read the given passage and answer the questions that follow.
The book features everything, from main courses to desserts. Readers likely have the ingredients on hand, making the dishes quick to whip up even if you have no time to head to the store first. Oliver says that as times change, so does peoples' relationship with cooking. He says the average consumer relies on takeout more often and doesn't want a long grocery list or a meal that takes hours to prepare. Oliver says one of the main goals of writing this book was to make fresh, home-cooked meals approachable and attainable for people of all class statuses. "Technology in life is changing our lifestyles. And of course, the food industry wants to fix everything for you. And what happens when that happens is people forget how to cook. And we know that when people forget how to cook, they're not so well," Oliver says. "For me, cooking isn't just about joy and the gorgeousness of serving people that you love, but also it's kind of political and it's about our kids and it's about our futures."

Which of the following statements is NOT TRUE with respect to the passage?

(1) Cooking is kind of political.
(2) People have forgotten how to cook.
(3) Consumers don't want a long grocery list.
(4) **The book features everything about traditional snacks. ✔**

Q.78

Read the given passage and answer the questions that follow.
The book features everything, from main courses to desserts. Readers likely have the ingredients on hand, making the dishes quick to whip up even if you have no time to head to the store first. Oliver says that as times change, so does peoples' relationship with cooking. He says the average consumer relies on takeout more often and doesn't want a long grocery list or a meal that takes hours to prepare. Oliver says one of the main goals of writing this book was to make fresh, home-cooked meals approachable and attainable for people of all class statuses. "Technology in life is changing our lifestyles. And of course, the food industry wants to fix everything for you. And what happens when that happens is people forget how to cook. And we know that when people forget how to cook, they're not so well," Oliver says. "For me, cooking isn't just about joy and the gorgeousness of serving people that you love, but also it's kind of political and it's about our kids and it's about our futures."

Select the most appropriate ANTONYM of the underlined word in the given sentence. '...writing this book was to make fresh, home-cooked meals approachable and attainable for people of all class statuses.'

(1) Unapproachable ✔
(2) Inapproachable
(3) Non-approachable
(4) Distant

Q.79

Read the given passage and answer the questions that follow.
The book features everything, from main courses to desserts. Readers likely have the ingredients on hand, making the dishes quick to whip up even if you have no time to head to the store first. Oliver says that as times change, so does peoples' relationship with cooking. He says the average consumer relies on takeout more often and doesn't want a long grocery list or a meal that takes hours to prepare. Oliver says one of the main goals of writing this book was to make fresh, home-cooked meals approachable and attainable for people of all class statuses. "Technology in life is changing our lifestyles. And of course, the food industry wants to fix everything for you. And what happens when that happens is people forget how to cook. And we know that when people forget how to cook, they're not so well," Oliver says. "For me, cooking isn't just about joy and the gorgeousness of serving people that you love, but also it's kind of political and it's about our kids and it's about our futures."

What is the tone of the passage?

(1) Sadistic
(2) Humourous
(3) Sad
(4) Informative ✔

QuickSarkari.com | WhatsApp Channel | Telegram: t.me/quick_sarkari

Q.80

Read the given passage and answer the questions that follow.
The book features everything, from main courses to desserts. Readers likely have the ingredients on hand, making the dishes quick to whip up even if you have no time to head to the store first. Oliver says that as times change, so does peoples' relationship with cooking. He says the average consumer relies on takeout more often and doesn't want a long grocery list or a meal that takes hours to prepare. Oliver says one of the main goals of writing this book was to make fresh, home-cooked meals approachable and attainable for people of all class statuses. "Technology in life is changing our lifestyles. And of course, the food industry wants to fix everything for you. And what happens when that happens is people forget how to cook. And we know that when people forget how to cook, they're not so well," Oliver says. "For me, cooking isn't just about joy and the gorgeousness of serving people that you love, but also it's kind of political and it's about our kids and it's about our futures."

Select the most appropriate synonym of the underlined word in the given sentence. '....cooking isn't just about joy and the gorgeousness of serving people that you love...'

(1) Beauty and delight ✔
(2) Exciting and joyful
(3) Tiring and annoying
(4) Sad and depressing

Hindi Language and Comprehension

Q.81 उचित कारक चिह्न से दिए गए वाक्य का रिक्त स्थान पूर्ण करें— मनुष्य अपने विवेक के बल पर अपने विश्वास ..... कभी कम नहीं होने देता।

(1) के लिए
(2) पर
(3) को ✔
(4) में

Q.82 वाक्य-विन्यास की दृष्टि से निम्न में से शुद्ध वाक्य का चयन करें---1192

(1) जबलपुर की किसी साहित्यिक संस्था ने निराला जी को जबलपुर आमंत्रित किया था। ✔
(2) जबलपुर की किसी साहित्यिक संस्था ने निराला जी को जबलपुर किया था आमंत्रित।
(3) जबलपुर की साहित्यिक किसी संस्था ने निराला जी को जबलपुर आमंत्रित किया था।
(4) किसी साहित्यिक संस्था ने जबलपुर की निराला जी को जबलपुर आमंत्रित था किया।

Q.83 निम्नलिखित वाक्यांश हेतु सार्थक शब्द का चुनाव करें।
मोक्ष की इच्छा रखने वाला

(1) मुमुक्षु ✔
(2) पिपासु
(3) युयुत्सु
(4) मुरमुट

Q.84 निम्नलिखित विकल्पों में अनेकार्थक शब्दों की दृष्टि से एक विकल्प अनुपयुक्त है, उसका चयन कीजिए :211

(1) चक्र = पहिया, वृत्त, घेरा

(2) चपला = लक्ष्मी, बिजली, स्त्री

(3) खग = पक्षी, गन्धर्व, सूर्य

(4) **चपल = चंचल, पारा, जीभ ✔**

Q.85 'मानव' का पर्यायवाची शब्द है –

(1) महामानव

(2) आदिमानव

(3) महात्मा

(4) **मनुष्य ✔**

Q.86 निम्नलिखित वाक्य की पूर्ति उचित कारक शब्द से करें।

सुदेश मुकेश _____ गाड़ी दे रहा है।

(1) से

(2) के

(3) ओह!

(4) **को ✔**

Q.87 दिए गये विकल्पों में 'कदली ' का अर्थ है-143

(1) जामुन

(2) कचनार

(3) **केला ✔**

(4) कदम्ब

Q.88 उचित कारक चिह्न से दिए गए वाक्य का रिक्त स्थान पूर्ण करें— विश्व की उन्नति एवं प्रगति ..... आधार मनुष्य का पुरुषार्थ है भाग्य नहीं।

(1) में

(2) को

(3) पर

(4) **का ✔**

Q.89 निम्नलिखित वाक्य में त्रुटि की पहचान कर शुद्ध वाक्य का चयन करें।

अंकित ने बीचे में बोलकर सब गूड़-गोबर कर दिया।

(1) **अंकित ने बीच में बोलकर सब गुड़-गोबर कर दिया। ✔**

(2) अंकित ने बीच में बोलकर सब गुड़-गोबर कर दिए।

(3) अंकित ने बीच में बोलकर सबे गुड़-गोबर कर दिया।

(4) अंकित नी बीच में बोल के सब गुड़-गोबर कर दिए।

Q.90 निम्नलिखित वाक्य को क्रम में लिखें।

1 हैं या फिर 2 आप रह सकते 3 आपके मित्र 4 या तो यहाँ

(1) 2341

(2) 1234

(3) 3412

(4) **4213 ✔**

Quick Sarkari

Q.91 दिये गये विकल्पों में ' जनेऊ ' का तत्सम शब्द है -150

(1) यज्ञोपवीत ✔

(2) माला

(3) सुमिरनी

(4) कंठी

Q.92 निम्नलिखित विकल्पों में रेखांकित शब्द के लिए सही वर्तनी वाला शब्द है- राजा के दरबार में एक विदुशक था जो सबको सदा हँसाया करता था

(1) वीदुशक

(2) विदूषक ✔

(3) विदुषक

(4) विदूशक

Q.93 'गिरगिट की तरह रंग बदलना' मुहावरे का सही अर्थ है -106

(1) बात बदलना

(2) बात दुहराना

(3) कभी एक बात पर नहीं टिकना ✔

(4) बात छुपाना

Q.94 निम्नलिखित वाक्य में सही मुहावरे का प्रयोग कीजिए- विपिन को समझाना बेकार है, वह तो _____ है।

(1) ईद का चाँद

(2) औंधी खोपड़ी ✔

(3) आस्तीन का साँप

(4) आँखों का तारा

Q.95 नीचे दिए वाक्यांश के लिए एक शब्द दिए गए विकल्पों में से चुनें- जिसे विश्वास या दिलासा दिलाया गया हो

(1) आश्वस्त ✔

(2) आशातीत

(3) विश्वसनीय

(4) विश्वस्त

Q.96

दिए गए गद्यांश के आधार पर निम्नांकित प्रश्नों के उत्तर दीजिए- आचरण का विकास जीवन का परमोद्देश्य है। आचरण के विकास के लिए नाना प्रकार की सामग्रियों का, जो संसार-संभूत शारीरिक, प्राकृतिक, मानसिक और आध्यात्मिक जीवन में वर्तमान हैं, उन सबकी (सबका) क्या एक पुरुष और क्या एक जाति के आचरण के विकास के साधनों के संबंध में विचार करना होगा। आचरण के विकास के लिए जितने कर्म हैं उन सबको आचरण के संघटनकर्ता धर्म के अंग मानना पड़ेगा। चाहे कोई कितना ही बड़ा महात्मा क्यों न हो, वह निश्चयपूर्वक यह नहीं कह सकता कि यों ही करो, और किसी तरह नहीं। आचरण की सभ्यता की प्राप्ति के लिए वह सब को एक पथ नहीं बता सकता। आचरणशील महात्मा स्वयं भी किसी अन्य की बनायी हुई सड़क से नहीं आया, उसने अपनी सड़क स्वयं ही बनायी थी। इसी से उसके बनाए हुए रास्ते पर चलकर हम भी अपने आचरण को आदर्श के ढाँचे में नहीं ढाल सकते। हमें अपना रास्ता अपने जीवन की कुदाली की एक-एक चोट से रात-दिन बनाना पड़ेगा और उसी पर चलना भी पड़ेगा। हर किसी को अपने देश-कालानुसार रामप्राप्ति के लिए अपनी नैया आप ही बनानी पड़ेगी और आप ही चलानी भी पड़ेगी।

लेखक के अनुसार जीवन का परमोद्देश्य क्या है?

(1) आचरण का उपकार

(2) आचरण का विकास ✔

(3) आचरण का अर्थ

(4) आचरण का कार्य

Q.97

दिए गए गद्यांश के आधार पर निम्नांकित प्रश्नों के उत्तर दीजिए- आचरण का विकास जीवन का परमोद्देश्य है। आचरण के विकास के लिए नाना प्रकार की सामग्रियों का, जो संसार-संभूत शारीरिक, प्राकृतिक, मानसिक और आध्यात्मिक जीवन में वर्तमान हैं, उन सबकी (सबका) क्या एक पुरुष और क्या एक जाति के आचरण के विकास के साधनों के संबंध में विचार करना होगा। आचरण के विकास के लिए जितने कर्म हैं उन सबको आचरण के संघटनकर्ता धर्म के अंग मानना पड़ेगा। चाहे कोई कितना ही बड़ा महात्मा क्यों न हो, वह निश्चयपूर्वक यह नहीं कह सकता कि यों ही करो, और किसी तरह नहीं। आचरण की सभ्यता की प्राप्ति के लिए वह सब को एक पथ नहीं बता सकता। आचरणशील महात्मा स्वयं भी किसी अन्य की बनायी हुई सड़क से नहीं आया, उसने अपनी सड़क स्वयं ही बनायी थी। इसी से उसके बनाए हुए रास्ते पर चलकर हम भी अपने आचरण को आदर्श के ढाँचे में नहीं ढाल सकते। हमें अपना रास्ता अपने जीवन की कुदाली की एक-एक चोट से रात-दिन बनाना पड़ेगा और उसी पर चलना भी पड़ेगा। हर किसी को अपने देश-कालानुसार रामप्राप्ति के लिए अपनी नैया आप ही बनानी पड़ेगी और आप ही चलानी भी पड़ेगी।

लेखक के अनुसार आचरण की सभ्यता की प्राप्ति के लिए उचित मार्ग क्या है?

(1) अपना मार्ग स्वयं बनाना ✔

(2) संस्कृति के अनुसार व्यवहार करना

(3) महात्मा द्वारा निर्मित मार्ग पर चलना

(4) गुरु के आदर्शों पर चलना

Q.98

दिए गए गद्यांश के आधार पर निम्नांकित प्रश्नों के उत्तर दीजिए- आचरण का विकास जीवन का परमोद्देश्य है। आचरण के विकास के लिए नाना प्रकार की सामग्रियों का, जो संसार-संभूत शारीरिक, प्राकृतिक, मानसिक और आध्यात्मिक जीवन में वर्तमान हैं, उन सबकी (सबका) क्या एक पुरुष और क्या एक जाति के आचरण के विकास के साधनों के संबंध में विचार करना होगा। आचरण के विकास के लिए जितने कर्म हैं उन सबको आचरण के संघटनकर्ता धर्म के अंग मानना पड़ेगा। चाहे कोई कितना ही बड़ा महात्मा क्यों न हो, वह निश्चयपूर्वक यह नहीं कह सकता कि यों ही करो, और किसी तरह नहीं। आचरण की सभ्यता की प्राप्ति के लिए वह सब को एक पथ नहीं बता सकता। आचरणशील महात्मा स्वयं भी किसी अन्य की बनायी हुई सड़क से नहीं आया, उसने अपनी सड़क स्वयं ही बनायी थी। इसी से उसके बनाए हुए रास्ते पर चलकर हम भी अपने आचरण को आदर्श के ढाँचे में नहीं ढाल सकते। हमें अपना रास्ता अपने जीवन की कुदाली की एक-एक चोट से रात-दिन बनाना पड़ेगा और उसी पर चलना भी पड़ेगा। हर किसी को अपने देश-कालानुसार रामप्राप्ति के लिए अपनी नैया आप ही बनानी पड़ेगी और आप ही चलानी भी पड़ेगी।

उपरोक्त गद्यांश के आधार पर आचरण शब्द का पर्यायवाची शब्द पहचानें।

(1) गुरु मार्ग

(2) व्यवहार ✔

(3) गृहकार्य

(4) परिवार

Q.99

दिए गए गद्यांश के आधार पर निम्नांकित प्रश्नों के उत्तर दीजिए- आचरण का विकास जीवन का परमोद्देश्य है। आचरण के विकास के लिए नाना प्रकार की सामग्रियों का, जो संसार-संभूत शारीरिक, प्राकृतिक, मानसिक और आध्यात्मिक जीवन में वर्तमान हैं, उन सबकी (सबका) क्या एक पुरुष और क्या एक जाति के आचरण के विकास के साधनों के संबंध में विचार करना होगा। आचरण के विकास के लिए जितने कर्म हैं उन सबको आचरण के संघटनकर्ता धर्म के अंग मानना पड़ेगा। चाहे कोई कितना ही बड़ा महात्मा क्यों न हो, वह निश्चयपूर्वक यह नहीं कह सकता कि यों ही करो, और किसी तरह नहीं। आचरण की सभ्यता की प्राप्ति के लिए वह सब को एक पथ नहीं बता सकता। आचरणशील महात्मा स्वयं भी किसी अन्य की बनायी हुई सड़क से नहीं आया, उसने अपनी सड़क स्वयं ही बनायी थी। इसी से उसके बनाए हुए रास्ते पर चलकर हम भी अपने आचरण को आदर्श के ढाँचे में नहीं ढाल सकते। हमें अपना रास्ता अपने जीवन की कुदाली की एक-एक चोट से रात-दिन बनाना पड़ेगा और उसी पर चलना भी पड़ेगा। हर किसी को अपने देश-कालानुसार रामप्राप्ति के लिए अपनी नैया आप ही बनानी पड़ेगी और आप ही चलानी भी पड़ेगी।

उपरोक्त गद्यांश के आधार पर महात्मा शब्द का विलोम शब्द पहचानें।

(1) मनीषी

(2) **दुरात्मा ✔**

(3) मंत्र दृष्टा

(4) मुनि

Q.100

दिए गए गद्यांश के आधार पर निम्नांकित प्रश्नों के उत्तर दीजिए- आचरण का विकास जीवन का परमोद्देश्य है। आचरण के विकास के लिए नाना प्रकार की सामग्रियों का, जो संसार-संभूत शारीरिक, प्राकृतिक, मानसिक और आध्यात्मिक जीवन में वर्तमान हैं, उन सबकी (सबका) क्या एक पुरुष और क्या एक जाति के आचरण के विकास के साधनों के संबंध में विचार करना होगा। आचरण के विकास के लिए जितने कर्म हैं उन सबको आचरण के संघटनकर्ता धर्म के अंग मानना पड़ेगा। चाहे कोई कितना ही बड़ा महात्मा क्यों न हो, वह निश्चयपूर्वक यह नहीं कह सकता कि यों ही करो, और किसी तरह नहीं। आचरण की सभ्यता की प्राप्ति के लिए वह सब को एक पथ नहीं बता सकता। आचरणशील महात्मा स्वयं भी किसी अन्य की बनायी हुई सड़क से नहीं आया, उसने अपनी सड़क स्वयं ही बनायी थी। इसी से उसके बनाए हुए रास्ते पर चलकर हम भी अपने आचरण को आदर्श के ढाँचे में नहीं ढाल सकते। हमें अपना रास्ता अपने जीवन की कुदाली की एक-एक चोट से रात-दिन बनाना पड़ेगा और उसी पर चलना भी पड़ेगा। हर किसी को अपने देश-कालानुसार रामप्राप्ति के लिए अपनी नैया आप ही बनानी पड़ेगी और आप ही चलानी भी पड़ेगी।

उपरोक्त गद्यांश के आधार संघटनकर्ता शब्द का उचित शब्दार्थ बताएं।

(1) चिकित्सा सुविधा प्रदान करने वाला व्यक्ति

(2) पैसे एकत्रित करने वाला व्यक्ति

(3) स्वतन्त्रता प्राप्ति की आशा रखने वाला व्यक्ति

(4) **लोगों/शक्तियों को एकत्रित करने वाला व्यक्ति ✔**

Drawing Teacher

Q.101 What is the purpose of the evaluation phase in the creative process?

सृजनात्मक प्रक्रिया में मूल्यांकन चरण का उद्देश्य क्या है?

(1) **To analyse and refine ideas after insight has occurred / अंतर्दृष्टि (इनसाइट) प्राप्त होने के बाद विचारों का विश्लेषण और परिष्करण करना ✔**

(2) To generate new material quickly / शीघ्रता से नई सामग्री उत्पन्न करना

(3) To record external sensory impressions / बाहरी संवेदी प्रभावों को अभिलेखित करना

(4) To begin sketching the final artwork / अंतिम कलाकृति का रेखांकन (स्केचिंग) प्रारंभ करना

Q.102 Which visual elements were used as a means of communication and emotional expression in prehistoric cave paintings dating back to 8000 BC?

8000 ईसा पूर्व के प्रागैतिहासिक गुफा चित्रों में संप्रेषण और भावनात्मक अभिव्यक्ति के साधन के रूप में किन दृश्य तत्वों का प्रयोग किया गया था?

(1) Texture / पोत (टेक्सचर)

(2) **Line / रेखा ✔**

(3) Dot / बिंदु

(4) Space / अंतराल (स्पेस)

Q.103 What does the term rhythm refer to in a visual composition or figure?

किसी दृश्य संयोजन या आकृति में लय शब्द का क्या अर्थ है?

(1) Distraction / विकर्षण (ध्यान भटकना)

(2) Illusion / भ्रम

(3) **Bond of vision / दृष्टि का बंधन ✔**

(4) Restlessness / बेचैनी

Q.104 Which of the following is the main characteristic of Emphasis?

निम्नलिखित में से कौन-सी प्रभाविता (एम्फेसिस) की मुख्य विशेषता है?

(1) **Give prominence to any one form / किसी एक रूप को प्रमुखता देना ✔**

(2) Prespective marking / परिप्रेक्ष्य अंकन

(3) Colour mixing / रंग मिश्रण

(4) Effect of tone / तान (टोन) का प्रभाव

Q.105 Which painting medium allows for the greatest flexibility in reworking the surface due to its slow drying time and blending properties?

कौन-सा चित्रण माध्यम अपने धीमे सूखने के समय और सम्मिश्रण गुणों के कारण सतह पर पुनः कार्य करने में सर्वाधिक लचीलापन प्रदान करता है?

(1) Watercolour / जलरंग

(2) **Oil / तैलरंग ✔**

(3) Tempera / टेम्परा

(4) Acrylic / ऐक्रेलिक

Q.106 Which of the following techniques is commonly used to create tonal variation in a soft pastel drawing?

सॉफ्ट पेस्टल चित्र में तानगत भिन्नता उत्पन्न करने के लिए सामान्यतः निम्नलिखित में से किस तकनीक का प्रयोग किया जाता है?

(1) **Finger or tool smudging / उंगली या उपकरण से रगड़कर फैलाना (स्मजिंग) ✔**

(2) Wet-on-wet blending / गीले-पर-गीला सम्मिश्रण

(3) Glazing with oil / तेल से ग्लेज़िंग

(4) Etching into the surface / सतह पर उत्कीर्णन (एचिंग)

Q.107 Which type of surface is NOT considered suitable for direct application of acrylic colours?

ऐक्रेलिक रंगों के प्रत्यक्ष प्रयोग के लिए किस प्रकार की सतह उपयुक्त नहीं मानी जाती है?

(1) Pre-primed Canvas / पूर्व-प्राइम्ड कैनवास

(2) Canvas Paper / कैनवास पेपर

(3) Pre-Primed Gesso Panels / पूर्व-प्राइम्ड जेसो पैनल

(4) **Glazed Ceramic / चमकदार (ग्लेज़्ड) सिरेमिक ✔**

Q.108 By what name is the Character of a surface in a painting called?

किसी चित्र में सतह के गुण (चरित्र) को किस नाम से जाना जाता है?

(1) Texture / पोत (टेक्सचर) ✔

(2) Pigment / वर्णक (पिगमेंट)

(3) Value / मान (वैल्यू)

(4) Proportion / अनुपात

Q.109 Which types of lines are most commonly associated with distance, calmness, peace, balance, stability and persistence in visual art?

दृश्य कला में किस प्रकार की रेखाएँ सर्वाधिक रूप से दूरी, शांति, सुकून, संतुलन, स्थिरता और दृढ़ता से संबद्ध हैं?

(1) Diagonal line / तिरछी (विकर्ण) रेखा

(2) Horizontal line / क्षैतिज रेखा ✔

(3) Vertical line / ऊर्ध्वाधर रेखा

(4) Curved line / वक्र रेखा

Q.110 What is the first step in the Creative art process?

सृजनात्मक कला प्रक्रिया का पहला चरण क्या है?

(1) Execution / निष्पादन

(2) Perception / प्रत्यक्षीकरण (बोध) ✔

(3) Presentation / प्रस्तुतीकरण

(4) Critique / समालोचना

Q.111 What is Linear perspective used to show in a picture?

किसी चित्र में रेखीय परिप्रेक्ष्य का प्रयोग क्या दर्शाने के लिए किया जाता है?

(1) To highlight colours / रंगों को उभारने के लिए

(2) Textural surface / पोतयुक्त सतह

(3) To create emotional impact / भावनात्मक प्रभाव उत्पन्न करने के लिए

(4) Depth and distance / गहराई और दूरी ✔

Q.112 In art, how many basic elements are considered a part of composition?

कला में, कितने मूल तत्वों को संयोजन का भाग माना जाता है?

(1) 7 ✔

(2) 3

(3) 6

(4) 5

Q.113 What type of sentiment does the horizontal line represent?

क्षैतिज रेखा किस प्रकार की भावना को दर्शाती है?

(1) Calmness / शांति ✔

(2) Insecurity / असुरक्षा

(3) Disturbance / अशांति

(4) Distraction / विकर्षण (ध्यान भटकना)

QuickSarkari.com | WhatsApp Channel | Telegram: t.me/quick_sarkari

Q.114 Unity in a painting can be enhanced by:

किसी चित्र में एकता (यूनिटी) को किसके द्वारा बढ़ाया जा सकता है?

(1) using random placement of objects / वस्तुओं की यादृच्छिक व्यवस्था का प्रयोग करके

(2) varying textures in unrelated directions / असंबंधित दिशाओं में पोत को परिवर्तित करके

(3) using several contrasting focal points / कई विरोधाभासी केंद्र बिंदुओं का प्रयोग करके

(4) **repeating visual elements such as shapes, colours or lines / आकृतियों, रंगों या रेखाओं जैसे दृश्य तत्वों को दोहराकर ✔**

Q.115 Which of the following is a characteristic of water colour technique?

निम्नलिखित में से कौन-सी जलरंग तकनीक की एक विशेषता है?

(1) Rugged / खुरदरापन

(2) Relief / उभारदार (रिलीफ)

(3) **Transparent / पारदर्शी ✔**

(4) Intaglio / इंटैग्लियो (उत्कीर्ण)

Q.116 Which of the following properties best distinguishes acrylic paint from both oil and tempera?

निम्नलिखित में से कौन-सा गुण ऐक्रेलिक रंग को तैलरंग और टेम्परा दोनों से सर्वोत्तम रूप से अलग करता है?

(1) **Fast drying and water solubility / शीघ्र सूखना और जल में घुलनशीलता ✔**

(2) Slow drying and smooth blending / धीमे सूखना और सहज सम्मिश्रण

(3) Opacity and high gloss / अपारदर्शिता और उच्च चमक

(4) Exclusively used on wooden panels / विशेष रूप से लकड़ी के पैनलों पर प्रयुक्त

Q.117 Select the traditional technique employed in creating Pahari miniature paintings.

पहाड़ी लघुचित्रों के निर्माण में प्रयुक्त पारंपरिक तकनीक का चयन करें।

(1) **Tempera / टेम्परा ✔**

(2) Oil / तैलरंग

(3) Acrylic / ऐक्रेलिक

(4) Pastel / पेस्टल

Q.118 Who among the following is a sound artist?

निम्नलिखित में से कौन एक ध्वनि कलाकार (साउंड आर्टिस्ट) है?

(1) **Janet Cardiff / जेनेट कार्डिफ़ ✔**

(2) Manet / माने

(3) Monet / मोने

(4) Picasso / पिकासो

Q.119 Which of the following groupings are the 'tertiary' colours?

निम्नलिखित में से कौन-सा समूह 'तृतीयक' रंगों का है?

(1) Yellow-blue, blue-red, red-yellow / पीला-नीला, नीला-लाल, लाल-पीला

(2) Red-violet, green-orange, blue-red / लाल-बैंगनी, हरा-नारंगी, नीला-लाल

(3) Yellow, red, blue / पीला, लाल, नीला

(4) **Red-violet, yellow-orange, yellow-green, blue-green, blue-violet / लाल-बैंगनी, पीला-नारंगी, पीला-हरा, नीला-हरा, नीला-बैंगनी ✔**

Q.120 Which of the following would most weaken the impact of a poster designed for a social awareness campaign?

सामाजिक जागरूकता अभियान के लिए बनाए गए पोस्टर के प्रभाव को निम्नलिखित में से कौन-सा सबसे अधिक कमज़ोर करेगा?

(1) Emotional visual content / भावनात्मक दृश्य सामग्री

(2) Clear call to action / कार्रवाई के लिए स्पष्ट आह्वान

(3) **Overuse of text and small fonts / पाठ का अत्यधिक प्रयोग और छोटे फ़ॉन्ट ✔**

(4) Simplified infographic layout / सरलीकृत इन्फोग्राफ़िक लेआउट

Q.121 Which of the following software is commonly used for designing books?

पुस्तकों की डिज़ाइनिंग के लिए सामान्यतः निम्नलिखित में से किस सॉफ़्टवेयर का प्रयोग किया जाता है?

(1) InPage

(2) **InDesign ✔**

(3) CorelDRAW

(4) Excel

Q.122 Which site gives the earliest evidence of agricultural field patterns through furrow marks?

कौन-सा स्थल हल की रेखाओं (फ़रो मार्क्स) के माध्यम से कृषि क्षेत्र के प्रतिरूपों का प्राचीनतम साक्ष्य प्रदान करता है?

(1) Lothal / लोथल

(2) Saspal / सासपाल

(3) **Kalibangan / कालीबंगा ✔**

(4) Chanhudaro / चन्हूदड़ो

Q.123 What are the memory pillars called in Madhya Pradesh among the Bhil community?

मध्य प्रदेश में भील समुदाय के बीच स्मृति स्तंभों को क्या कहा जाता है?

(1) Stambh / स्तंभ

(2) Cheera / चीरा

(3) Matlok / मटलोक

(4) **Gatlas / गाटला ✔**

Q.124 Which of the following modes is most suitable for a 360° advertising campaign?

360° विज्ञापन अभियान के लिए निम्नलिखित में से कौन-सा माध्यम सबसे उपयुक्त है?

(1) Only print media / केवल प्रिंट मीडिया

(2) Only flyers and postcards / केवल फ़्लायर और पोस्टकार्ड

(3) Only television commercials / केवल टेलीविज़न विज्ञापन

(4) **Integration across print, digital, outdoor and social media / प्रिंट, डिजिटल, आउटडोर और सोशल मीडिया में एकीकरण ✔**

Q.125 'Latpatia Sua' is a famous Madhubani painting. Who is the artist behind this artwork?

'लटपटिया सुआ' एक प्रसिद्ध मधुबनी चित्र है। इस कलाकृति के पीछे कौन-सा कलाकार है?

(1) Sita Ramayya / सीता रमैया

(2) Janki Devi / जानकी देवी

(3) **Mahasundari Devi / महासुंदरी देवी ✔**

(4) Madhuri Rani / माधुरी रानी

Quick Sarkari

Q.126 Which folk ritual dance is closely associated with Tharu tribal culture and is visually complemented by their costume art?

कौन-सा लोक अनुष्ठानिक नृत्य थारू जनजातीय संस्कृति से निकटता से संबद्ध है और उनकी वेशभूषा कला द्वारा दृश्य रूप से पूरित होता है?

(1) Ghoomar Dance / घूमर नृत्य

(2) **Maghi Dance / माघी नृत्य ✔**

(3) Saura Dance / सौरा नृत्य

(4) Kajari / कजरी

Q.127 Which stylistic feature is most commonly associated with the late works of KCS Paniker?

के.सी.एस. पणिक्कर की परवर्ती कृतियों से सर्वाधिक रूप से कौन-सी शैलीगत विशेषता संबद्ध है?

(1) British academic realism / ब्रिटिश अकादमिक यथार्थवाद

(2) **Calligraphic symbols and abstract spiritual geometry / सुलेखीय प्रतीक और अमूर्त आध्यात्मिक ज्यामिति ✔**

(3) Realistic portraiture / यथार्थवादी व्यक्तिचित्रण

(4) Mughal miniature technique / मुगल लघुचित्र तकनीक

Q.128 Devi Prasad Roy Chowdhury was honoured by the colonial government as the Most Exalted Member of the British Empire (MBE) in the year _____.

देवी प्रसाद रॉय चौधरी को औपनिवेशिक सरकार द्वारा वर्ष _____ में मोस्ट एक्ज़ाल्टेड मेंबर ऑफ़ द ब्रिटिश एम्पायर (MBE) के रूप में सम्मानित किया गया था।

(1) 1936

(2) 1940

(3) 1938

(4) **1937 ✔**

Q.129 Ragamala paintings are primarily identified as:

रागमाला चित्रों को मुख्य रूप से किस रूप में पहचाना जाता है?

(1) Company paintings / कंपनी चित्र

(2) Warli paintings / वारली चित्र

(3) Tribal paintings / जनजातीय चित्र

(4) **Pahari paintings / पहाड़ी चित्र ✔**

Q.130 The Aipan motif 'Saraswati Chowki' is specifically drawn during which type of occasion?

ऐपण अभिप्राय (मोटिफ़) 'सरस्वती चौकी' विशेष रूप से किस प्रकार के अवसर पर बनाया जाता है?

(1) Wedding rituals / विवाह अनुष्ठान

(2) **Start to child's formal education ceremony / बच्चे की औपचारिक शिक्षा के आरंभ का संस्कार ✔**

(3) Funeral rites / अंत्येष्टि संस्कार

(4) Housewarming ceremony / गृह प्रवेश समारोह

Q.131 What element is the most effective in grabbing attention in a social issue poster?

किसी सामाजिक मुद्दे पर आधारित पोस्टर में ध्यान आकर्षित करने के लिए कौन-सा तत्व सबसे प्रभावी है?

(1) Small typography / छोटी टाइपोग्राफ़ी

(2) **Bold colours and compelling images / गहरे (बोल्ड) रंग और प्रभावशाली चित्र ✔**

(3) Long paragraph of text / पाठ का लंबा अनुच्छेद

(4) Borderless printing / किनारा-रहित (बॉर्डरलेस) मुद्रण

QuickSarkari.com | WhatsApp Channel | Telegram: t.me/quick_sarkari

Q.132 The term 'ready-to-wear' is derived from which French phrase?

'रेडी-टू-वियर' शब्द किस फ़्रांसीसी वाक्यांश से व्युत्पन्न है?

(1) Fashion di vista

(2) **Pret-a-porter ✔**

(3) Ready to buy

(4) Grab a quick

Q.133 Which statement best describes the artistic style of Indus Valley artifacts?

कौन-सा कथन सिंधु घाटी की कलाकृतियों की कलात्मक शैली का सर्वोत्तम वर्णन करता है?

(1) The figures were symbolic and lacked anatomical detail. / आकृतियाँ प्रतीकात्मक थीं और उनमें शारीरिक संरचना का विवरण नहीं था।

(2) **The delineation of human and animal figures was highly realistic. / मानव और पशु आकृतियों का चित्रण अत्यधिक यथार्थवादी था। ✔**

(3) Only religious symbols were depicted, without any human or animal forms. / किसी भी मानव या पशु रूप के बिना केवल धार्मिक प्रतीकों का चित्रण किया गया था।

(4) The art was abstract, focusing only on geometric patterns. / कला अमूर्त थी, जो केवल ज्यामितीय प्रतिरूपों पर केंद्रित थी।

Q.134 The art of adjusting printed material through Letters is called:

अक्षरों के माध्यम से मुद्रित सामग्री को व्यवस्थित करने की कला को क्या कहा जाता है?

(1) Iconography / आइकोनोग्राफ़ी

(2) **Typography / टाइपोग्राफ़ी ✔**

(3) Grography / ग्रोग्राफ़ी

(4) Hydrography / हाइड्रोग्राफ़ी

Q.135 Which element of package design most directly influences consumer buying decisions?

पैकेज डिज़ाइन का कौन-सा तत्व उपभोक्ता के क्रय निर्णयों को सबसे प्रत्यक्ष रूप से प्रभावित करता है?

(1) **Visual appeal and branding / दृश्य आकर्षण और ब्रांडिंग ✔**

(2) The number of folds / मोड़ों (फ़ोल्ड) की संख्या

(3) Package durability / पैकेज का टिकाऊपन

(4) The size of the barcode / बारकोड का आकार

Q.136 What does CMYK stand for in print graphic design?

प्रिंट ग्राफ़िक डिज़ाइन में CMYK का पूर्ण रूप क्या है?

(1) Color, Mix, Yellow, Key

(2) Cyan, Mint, Yellow, Khaki

(3) Color, Mode, Yellow, Key

(4) **Cyan, Magenta, Yellow, Key ✔**

Q.137 Who among the following is famous as a Warli artist?

निम्नलिखित में से कौन वारली कलाकार के रूप में प्रसिद्ध है?

(1) **Jivya Soma Mashe / जिव्या सोमा माशे ✔**

(2) Radha Sumati / राधा सुमति

(3) Meera Vasudevan / मीरा वासुदेवन

(4) Sujata / सुजाता

Q.138 A logo is best described as:

लोगो का सर्वोत्तम वर्णन इस प्रकार किया जा सकता है:

(1) a short promotional phrase / एक लघु प्रचार वाक्यांश

(2) a sentence used for branding / ब्रांडिंग के लिए प्रयुक्त एक वाक्य

(3) **a combination of image and text representing a brand / किसी ब्रांड का प्रतिनिधित्व करने वाला चित्र और पाठ का संयोजन ✔**

(4) a company's handwritten signature for advertising / विज्ञापन के लिए किसी कंपनी के हस्तलिखित हस्ताक्षर

Q.139 Which painting in the Ajanta Caves is considered a masterpiece of Indian art?

अजंता की गुफाओं में कौन-सा चित्र भारतीय कला की उत्कृष्ट कृति माना जाता है?

(1) **Padmapani Bodhisattva / पद्मपाणि बोधिसत्व ✔**

(2) Mara Vijay / मार विजय

(3) Jataka queen / जातक रानी

(4) Blue Pond / नीला तालाब

Q.140 Kalighat is a form of painting produced in the 19th century by artists in the market place of _____.

कालीघाट 19वीं शताब्दी में _____ के बाज़ार में कलाकारों द्वारा बनाई गई चित्रकला की एक शैली है।

(1) Kochi / कोच्चि

(2) Sarnath / सारनाथ

(3) Sanchi / साँची

(4) **Calcutta / कलकत्ता ✔**

Q.141 Which famous artwork series was created by K C S Paniker, inspired by local calligraphy and metaphysical themes?

स्थानीय सुलेख और तत्वमीमांसीय विषयों से प्रेरित होकर के.सी.एस. पणिक्कर द्वारा कौन-सी प्रसिद्ध कलाकृति श्रृंखला बनाई गई थी?

(1) **Words and Symbols / वर्ड्स एंड सिंबल्स (Words and Symbols) ✔**

(2) Indian Renaissance / इंडियन रेनेसां (Indian Renaissance)

(3) Rhythm of Nature / रिदम ऑफ़ नेचर (Rhythm of Nature)

(4) The Divine Forms / द डिवाइन फ़ॉर्म्स (The Divine Forms)

Q.142 Which of the following refers to a three-dimensional shape that has thickness and depth?

निम्नलिखित में से कौन-सा उस त्रि-आयामी आकार को संदर्भित करता है, जिसमें मोटाई और गहराई होती है?

(1) Line / रेखा

(2) Shape / आकार

(3) **Form / रूप ✔**

(4) Colour / रंग

Q.143 Which type of visual art emphasises ideas over aesthetic and often uses mixed media or installations?

किस प्रकार की दृश्य कला सौंदर्य की अपेक्षा विचारों पर बल देती है और प्रायः मिश्रित माध्यम या संस्थापनाओं (इंस्टॉलेशन) का प्रयोग करती है?

(1) Abstract Expressionism / अमूर्त अभिव्यंजनावाद

(2) Romanticism / स्वच्छंदतावाद (रोमांटिसिज़्म)

(3) **Conceptual Art / संकल्पनात्मक कला (कॉन्सेप्चुअल आर्ट) ✔**

(4) Realism / यथार्थवाद

Q.144 Who among the following stated that 'what is true, what is beautiful, what is beneficial—that is art'?
निम्नलिखित में से किसने कहा था कि 'जो सत्य है, जो सुंदर है, जो हितकारी है—वही कला है'?

(1) Jalota / जलोटा
(2) Kalidasa / कालिदास
(3) **Rabindranath Tagore / रवीन्द्रनाथ टैगोर ✔**
(4) Bharata Muni / भरत मुनि

Q.145 Which is the most basic type of linear perspective?
रेखीय परिप्रेक्ष्य का सबसे मूल प्रकार कौन-सा है?

(1) Three-point perspective / त्रि-बिंदु परिप्रेक्ष्य
(2) Two-point perspective / द्वि-बिंदु परिप्रेक्ष्य
(3) Atmospheric perspective / वायुमंडलीय परिप्रेक्ष्य
(4) **Single-point perspective / एक-बिंदु परिप्रेक्ष्य ✔**

Q.146 In Indian aesthetic theory, the term "Bhava" refers to:
भारतीय सौंदर्यशास्त्रीय सिद्धांत में, "भाव" शब्द का अर्थ है:

(1) a religious practice involving chanting / मंत्रोच्चार से युक्त एक धार्मिक अनुष्ठान
(2) **the emotional state or sentiment expressed in the artwork / कलाकृति में अभिव्यक्त भावनात्मक अवस्था या मनोभाव ✔**
(3) the dominant mood of a poem / किसी कविता की प्रधान मनोदशा
(4) the material used in a sculpture / मूर्तिकला में प्रयुक्त सामग्री

Q.147 Which of the following combinations best represents the three primary branches of Visual Art in formal academic classification?
औपचारिक अकादमिक वर्गीकरण में, निम्नलिखित में से कौन-सा संयोजन दृश्य कला की तीन प्राथमिक शाखाओं का सर्वोत्तम प्रतिनिधित्व करता है?

(1) Painting, Theatre, Music / चित्रकला, रंगमंच, संगीत
(2) **Painting, Sculpture, Architecture / चित्रकला, मूर्तिकला, वास्तुकला ✔**
(3) Cinema, Literature, Pottery / सिनेमा, साहित्य, मृद्भांड कला
(4) Sculpture, Dance, Photography / मूर्तिकला, नृत्य, छायाचित्रण

Q.148 Which of the following compositions best demonstrates asymmetrical balance in visual art?
निम्नलिखित में से कौन-सा संयोजन दृश्य कला में असममित संतुलन को सर्वोत्तम रूप से प्रदर्शित करता है?

(1) A grid-based layout with equally spaced elements / समान दूरी पर स्थित तत्वों वाला ग्रिड-आधारित लेआउट
(2) A radial layout with elements rotating from a central point / केंद्रीय बिंदु से घूमते तत्वों वाला अरीय (रेडियल) लेआउट
(3) A symmetrical mandala with mirrored patterns on both sides / दोनों ओर दर्पण प्रतिबिंबित प्रतिरूपों वाला सममित मंडल
(4) **A landscape where large visual mass on one side is counterbalanced by colour and texture on the other / एक भूदृश्य, जिसमें एक ओर के बड़े दृश्य द्रव्यमान को दूसरी ओर के रंग और पोत द्वारा संतुलित किया गया है ✔**

Q.149 Historian Ananda Coomaraswamy was born in _____.
इतिहासकार आनंद कुमारस्वामी का जन्म _____ में हुआ था।

(1) America / अमेरिका
(2) Tamil Nadu / तमिलनाडु
(3) Paris / पेरिस
(4) **Ceylon / सीलोन ✔**

Q.150 Who is regarded as the 'Pioneer of Modern Art' in India?

भारत में 'आधुनिक कला का अग्रदूत' किसे माना जाता है?

(1) Rabindranath Tagore / रवीन्द्रनाथ टैगोर

(2) Asit Kumar Haldar / असित कुमार हलदार

(3) Gopal Ghosh / गोपाल घोष

(4) **Raja Ravi Varma / राजा रवि वर्मा ✔**

Q.151 When did Artist NS Bendre receive the prestigious 'Kalidasa Award'?

कलाकार एन.एस. बेंद्रे को प्रतिष्ठित 'कालिदास सम्मान' कब प्राप्त हुआ?

(1) 1991 AD / 1991 ई.

(2) **1984 AD / 1984 ई. ✔**

(3) 1955 AD / 1955 ई.

(4) 2001 AD / 2001 ई.

Q.152 Which of the following is NOT traditionally considered a part of Fine Arts?

निम्नलिखित में से कौन-सा पारंपरिक रूप से ललित कलाओं का भाग नहीं माना जाता है?

(1) Sculpture / मूर्तिकला

(2) Drawing / रेखांकन

(3) Painting / चित्रकला

(4) **Engineering / अभियांत्रिकी ✔**

Q.153 Which of the following is a key visual characteristic of early Apabhramsa style paintings?

निम्नलिखित में से कौन-सी प्रारंभिक अपभ्रंश शैली के चित्रों की एक प्रमुख दृश्य विशेषता है?

(1) **Elongated eyes, bold outlines, and flat composition / लंबी आँखें, गहरी (बोल्ड) बाह्य रेखाएँ और सपाट संयोजन ✔**

(2) Fresco technique on stone walls / पत्थर की दीवारों पर भित्तिचित्र (फ़्रेस्को) तकनीक

(3) Naturalistic shading and perspective / प्रकृतिवादी छायांकन और परिप्रेक्ष्य

(4) Gold leaf backgrounds with 3D volume / 3D आयतन के साथ स्वर्ण पत्र की पृष्ठभूमि

Q.154 How many points are there in one Pica in Type Measurement?

टाइप मापन में एक पाइका (Pica) में कितने पॉइंट होते हैं?

(1) **12 ✔**

(2) 15

(3) 2

(4) 8

Q.155 In the context of the principles of design, which of the following refers to the patterned repetition, recurrence, and organised movement of the elements?

डिज़ाइन के सिद्धांतों के संदर्भ में, निम्नलिखित में से कौन तत्वों की प्रतिरूपित पुनरावृत्ति, आवर्तन और व्यवस्थित गति को संदर्भित करता है?

(1) Balance / संतुलन

(2) Contrast / विरोधाभास (कंट्रास्ट)

(3) Harmony / सामंजस्य

(4) **Rhythm / लय ✔**

Q.156 According to Aristotle, which of the following is NOT one of the six essential parts of tragedy?
अरस्तू के अनुसार, निम्नलिखित में से कौन-सा त्रासदी के छह आवश्यक अंगों में से एक नहीं है?

(1) Plot / कथानक
(2) **Dialogue / संवाद ✔**
(3) Spectacle / दृश्य-विधान
(4) Character / चरित्र

Q.157 When did Rabindranath Tagore receive the Nobel Prize for Literature?
रवीन्द्रनाथ टैगोर को साहित्य का नोबेल पुरस्कार कब प्राप्त हुआ?

(1) 1920
(2) 1915
(3) **1913 ✔**
(4) 1917

Q.158 Jogimara caves are located in:
जोगीमारा गुफाएँ कहाँ स्थित हैं?

(1) Odisha / ओडिशा
(2) Uttar Pradesh / उत्तर प्रदेश
(3) Karnataka / कर्नाटक
(4) **Chhattisgarh / छत्तीसगढ़ ✔**

Q.159 Which of the following statements best highlights the key difference between commercial art and fine art?
निम्नलिखित में से कौन-सा कथन व्यावसायिक कला और ललित कला के बीच प्रमुख अंतर को सर्वोत्तम रूप से उजागर करता है?

(1) **Commercial art is created to promote products or services, whereas fine art is made for aesthetic and expressive purposes. / व्यावसायिक कला उत्पादों या सेवाओं के प्रचार के लिए बनाई जाती है, जबकि ललित कला सौंदर्यात्मक और अभिव्यंजक उद्देश्यों के लिए बनाई जाती है। ✔**
(2) Fine art focuses on visual effects, while commercial art focuses only on music. / ललित कला दृश्य प्रभावों पर केंद्रित होती है, जबकि व्यावसायिक कला केवल संगीत पर केंद्रित होती है।
(3) Fine art and commercial art are both strictly used in corporate branding. / ललित कला और व्यावसायिक कला दोनों का प्रयोग पूर्णतः कॉर्पोरेट ब्रांडिंग में किया जाता है।
(4) Commercial art is displayed in museums, while fine art is used in advertising. / व्यावसायिक कला संग्रहालयों में प्रदर्शित की जाती है, जबकि ललित कला का प्रयोग विज्ञापन में किया जाता है।

Q.160 What does the term "plastic arts" refer to?
"प्लास्टिक कला" शब्द किसे संदर्भित करता है?

(1) Arts that are temporary in nature / वे कलाएँ जो अस्थायी प्रकृति की होती हैं
(2) **Arts that involve molding or shaping, like sculpture or ceramics / वे कलाएँ जिनमें ढालना या आकार देना शामिल होता है, जैसे मूर्तिकला या सिरेमिक ✔**
(3) Arts made using plastic materials / प्लास्टिक सामग्री का प्रयोग करके बनाई गई कलाएँ
(4) Arts taught in schools only / केवल विद्यालयों में पढ़ाई जाने वाली कलाएँ

Q.161 Which Indian school of painting was influenced by Japanese wash techniques and sought to revive Indian traditional art during the colonial period?

कौन-सा भारतीय चित्रकला शैली जापानी वॉश तकनीकों से प्रभावित थी और जिसने औपनिवेशिक काल के दौरान भारतीय पारंपरिक कला को पुनर्जीवित करने का प्रयास किया?

(1) Bengal School / बंगाल शैली ✔

(2) Kalighat / कालीघाट

(3) Mysore School / मैसूर शैली

(4) Company School / कंपनी शैली

Q.162 Which of the following best describes Rashtrakuta contribution to Indian art?

निम्नलिखित में से कौन-सा भारतीय कला में राष्ट्रकूटों के योगदान का सर्वोत्तम वर्णन करता है?

(1) Introduction of fresco painting / भित्तिचित्र (फ़्रेस्को) चित्रकला का प्रारंभ

(2) Mastery of rock-cut architecture with symbolic and sculptural richness / प्रतीकात्मक और मूर्तिकला समृद्धि के साथ शैलकृत वास्तुकला में निपुणता ✔

(3) Invention of the wheel and pottery techniques / पहिये और मृद्भांड तकनीकों का आविष्कार

(4) Development of Mughal miniatures / मुगल लघुचित्रों का विकास

Q.163 Phad painting, known for its scroll-like narrative structure, is traditionally associated with which theme?

अपनी कुंडलित पट (स्क्रॉल) जैसी कथात्मक संरचना के लिए प्रसिद्ध फड़ चित्रकला पारंपरिक रूप से किस विषय से संबद्ध है?

(1) Mughal miniature court scenes / मुगल लघुचित्र दरबारी दृश्य

(2) Abstract nature motifs / अमूर्त प्रकृति अभिप्राय

(3) Krishna's childhood only / केवल कृष्ण का बचपन

(4) Epic tales of local deities and heroic ballads / स्थानीय देवताओं की महागाथाएँ और वीर गाथाएँ ✔

Q.164 The Gupta period marks the beginning of which artistic phase in India?

गुप्त काल भारत में किस कलात्मक चरण के आरंभ का प्रतीक है?

(1) Colonial realism / औपनिवेशिक यथार्थवाद

(2) Early medieval abstraction / प्रारंभिक मध्यकालीन अमूर्तन

(3) Folk art revival / लोक कला पुनरुद्धार

(4) Classical phase of sculpture / मूर्तिकला का शास्त्रीय चरण ✔

Q.165 Which of the following art features is most closely associated with the Sunga period?

निम्नलिखित में से कौन-सी कला विशेषता शुंग काल से सर्वाधिक निकटता से संबद्ध है?

(1) Buddhist cave monasteries with chaityas / चैत्यों सहित बौद्ध गुफा विहार

(2) Gandhara-style sculptures / गांधार शैली की मूर्तियाँ

(3) Narrative reliefs on gateways and railings of stupas / स्तूपों के तोरण द्वारों और वेदिकाओं पर कथात्मक उद्धृत नक्काशी ✔

(4) Polished sandstone monolithic pillars / पॉलिश किए हुए बलुआ पत्थर के एकाश्म स्तंभ

Q.166 Jain manuscript painting flourished primarily during which period?
जैन पांडुलिपि चित्रकला मुख्य रूप से किस काल में विकसित हुई?

(1) 3rd to 6th century CE / 3री से 6ठी शताब्दी ई.
(2) 7th to 10th century CE / 7वीं से 10वीं शताब्दी ई.
(3) **11th to 16th century CE / 11वीं से 16वीं शताब्दी ई. ✔**
(4) 17th to 19th century CE / 17वीं से 19वीं शताब्दी ई.

Q.167 The Gond community primarily belongs to which group?
गोंड समुदाय मुख्य रूप से किस समूह से संबंधित है?

(1) **Tribal or Adivasi / जनजातीय या आदिवासी ✔**
(2) Dravidians / द्रविड़
(3) Rajputs / राजपूत
(4) Britishers / अंग्रेज़

Q.168 The Virupaksha Temple at Pattadakal was built by which Chalukya ruler?
पट्टदकल स्थित विरुपाक्ष मंदिर का निर्माण किस चालुक्य शासक ने करवाया था?

(1) Rani Ahillya / रानी अहिल्या
(2) Pulakesin I / पुलकेशिन प्रथम
(3) Mangalesha / मंगलेश
(4) **Rani Lokamahadevi / रानी लोकमहादेवी ✔**

Q.169 Kailash temple of Ellora was constructed by the Rashtrakuta king:
एलोरा के कैलाश मंदिर का निर्माण राष्ट्रकूट राजा _____ द्वारा करवाया गया था:

(1) Krishna III / कृष्ण तृतीय
(2) Dantidurga / दंतिदुर्ग
(3) Amoghavarsha / अमोघवर्ष
(4) **Krishna I / कृष्ण प्रथम ✔**

Q.170 Which of the following is a characteristic feature of the Mathura School of Art?
निम्नलिखित में से कौन-सी मथुरा कला शैली की एक विशिष्ट विशेषता है?

(1) Hellenistic facial features / यूनानी (हेलेनिस्टिक) मुखाकृति विशेषताएँ
(2) Absence of Buddhist iconography / बौद्ध प्रतिमा-विज्ञान का अभाव
(3) **Indigenous Indian stylistic elements with spiritual expression / आध्यात्मिक अभिव्यक्ति सहित स्वदेशी भारतीय शैलीगत तत्व ✔**
(4) Realistic drapery and sharp features / यथार्थवादी वस्त्र-विन्यास और तीखी मुखाकृति

Q.171 What is a distinguishing feature of the Indus Valley Civilization's artistic expression?
सिंधु घाटी सभ्यता की कलात्मक अभिव्यक्ति की एक विशिष्ट विशेषता क्या है?

(1) Abstract oil paintings / अमूर्त तैलचित्र
(2) Large-scale murals / बड़े पैमाने के भित्तिचित्र
(3) Cave frescoes in gold leaf / स्वर्ण पत्र में गुफा भित्तिचित्र
(4) **Seals with animal motifs and script / पशु अभिप्रायों और लिपि वाली मुहरें ✔**

Q.172 What is depicted in the initial phase of the Jaunsari Culture Painting?

जौनसारी संस्कृति चित्रकला के प्रारंभिक चरण में क्या दर्शाया गया है?

(1) Traditional farming scenes of the Garhwal region / गढ़वाल क्षेत्र के पारंपरिक कृषि दृश्य

(2) Celebration of Holi with floral designs / पुष्प डिज़ाइनों के साथ होली का उत्सव

(3) Marriage rituals of the Rajput community / राजपूत समुदाय के विवाह अनुष्ठान

(4) **Jaunsari Diwali with ethnic dresses and Harul dance / पारंपरिक वेशभूषा और हारुल नृत्य के साथ जौनसारी दिवाली ✔**

Q.173 Which of the following floor decoration forms is traditionally practiced during Pongal in South India?

दक्षिण भारत में पोंगल के दौरान पारंपरिक रूप से निम्नलिखित में से कौन-सा भूमि अलंकरण रूप बनाया जाता है?

(1) Rangoli / रंगोली

(2) **Kolam / कोलम ✔**

(3) Alpana / अल्पना

(4) Sanjhi / सांझी

Q.174 Which painting tradition uses layered dots and vibrant colours to depict nature, mythology, and tribal deities?

कौन-सी चित्रकला परंपरा प्रकृति, पौराणिक कथाओं और जनजातीय देवताओं को दर्शाने के लिए परतदार बिंदुओं और चटकीले रंगों का प्रयोग करती है?

(1) Bhotia / भोटिया

(2) Warli / वारली

(3) **Bhil / भील ✔**

(4) Tharu / थारू

Q.175 How many major categories are included under Fine Arts?

ललित कलाओं के अंतर्गत कितनी प्रमुख श्रेणियाँ शामिल हैं?

(1) **5 ✔**

(2) 9

(3) 8

(4) 7

Q.176 _____ is a stunning collection of clay soldiers made during the Chin Period.

_____ चिन काल के दौरान बनाए गए मिट्टी के सैनिकों का एक अद्भुत संग्रह है।

(1) The Clay Battalion / द क्ले बटालियन

(2) The Clay Army / द क्ले आर्मी

(3) The Terracota Battalion / द टेराकोटा बटालियन

(4) **The Terracotta Army / द टेराकोटा आर्मी ✔**

Q.177 Tanjore painting is distinct for its use of which material?

तंजौर चित्रकला किस सामग्री के प्रयोग के लिए विशिष्ट है?

(1) Tempera on bamboo / बाँस पर टेम्परा

(2) **Gold foil and semi-precious stones / सोने की पन्नी और अर्ध-कीमती पत्थर ✔**

(3) Water-based inks / जल-आधारित स्याही

(4) Embroidery on silk / रेशम पर कढ़ाई

Q.178 What type of script did the Indus Valley Civilisation use?

सिंधु घाटी सभ्यता में किस प्रकार की लिपि का प्रयोग किया जाता था?

(1) Devanagari / देवनागरी

(2) Brahmi / ब्राह्मी

(3) **Pictographic / चित्रात्मक ✔**

(4) Aramaic / अरामाइक

Q.179 The Unified Silla period contributed significantly to which art form that later influenced East Asia?

एकीकृत सिला काल ने किस कला रूप में महत्वपूर्ण योगदान दिया, जिसने बाद में पूर्वी एशिया को प्रभावित किया?

(1) Calligraphy on bamboo / बाँस पर सुलेख

(2) Silk weaving / रेशम बुनाई

(3) **Stone pagodas / पत्थर के पैगोडा ✔**

(4) Zen ink painting / ज़ेन स्याही चित्रकला

Q.180 Which of the following is a distinctive feature of Jomon pottery?

निम्नलिखित में से कौन-सी जोमोन मृद्भांड की एक विशिष्ट विशेषता है?

(1) Molded bronze ritual vessels / ढाले गए कांस्य अनुष्ठानिक पात्र

(2) **Coiled construction with elaborate cord-marked patterns / विस्तृत डोरी-अंकित प्रतिरूपों के साथ कुंडलित निर्माण ✔**

(3) Painted terra-cotta warriors / चित्रित टेराकोटा योद्धा

(4) Glazed porcelain with floral designs / पुष्प डिज़ाइनों वाला चमकदार पोर्सिलेन

Q.181 Herbert Reed was a well-known:

हर्बर्ट रीड एक प्रसिद्ध _____ थे:

(1) sculptor / मूर्तिकार

(2) photographer / छायाकार

(3) **art writer / कला लेखक ✔**

(4) artist / कलाकार

Q.182 The chromolithograph titled 'Parsi Beauty,' derived from a painting by artist Raja Ravi Varma, was produced by which press?

कलाकार राजा रवि वर्मा के एक चित्र से व्युत्पन्न 'पारसी ब्यूटी' (Parsi Beauty) शीर्षक वाला क्रोमोलिथोग्राफ़ किस प्रेस द्वारा तैयार किया गया था?

(1) Mysore Press / मैसूर प्रेस

(2) Bombay Art Press / बॉम्बे आर्ट प्रेस

(3) Bengal School Press / बंगाल स्कूल प्रेस

(4) **Ravi Varma Press / रवि वर्मा प्रेस ✔**

Q.183 One of Satish Gujral's most famous architectural works is _____.

सतीश गुजराल की सबसे प्रसिद्ध वास्तुशिल्पीय कृतियों में से एक _____ है।

(1) **The Belgium Embassy, New Delhi / बेल्जियम दूतावास, नई दिल्ली ✔**

(2) Jawahar Kala Kendra, Jaipur / जवाहर कला केंद्र, जयपुर

(3) Lotus Temple, New Delhi / लोटस टेम्पल, नई दिल्ली

(4) India Habitat Centre, New Delhi / इंडिया हैबिटेट सेंटर, नई दिल्ली

Q.184 In Aristotle's Poetics, what is the primary purpose of tragedy in literature?

अरस्तू के 'पोएटिक्स' में, साहित्य में त्रासदी का प्राथमिक उद्देश्य क्या है?

(1) To provoke emotional chaos / भावनात्मक अराजकता उत्पन्न करना

(2) To teach moral lessons directly / प्रत्यक्ष रूप से नैतिक शिक्षा देना

(3) **To arouse and purge emotions of pity and fear (catharsis) / करुणा और भय की भावनाओं को जाग्रत कर उनका विरेचन करना (कैथार्सिस) ✔**

(4) To entertain the audience / दर्शकों का मनोरंजन करना

Q.185 Who among the following was NOT an impressionist ?

निम्नलिखित में से कौन प्रभाववादी (इम्प्रेशनिस्ट) नहीं था?

(1) **Paul Cézanne / पॉल सेज़ान ✔**

(2) Claude Monet / क्लॉड मोने

(3) Mary Cassatt / मैरी कसाट

(4) Edgar Degas / एडगर देगा

Q.186 Which of the following artistic techniques was developed during the Renaissance period?

निम्नलिखित में से कौन-सी कलात्मक तकनीक पुनर्जागरण काल के दौरान विकसित हुई थी?

(1) **Chiaroscuro / कियारोस्कूरो (छाया-प्रकाश) ✔**

(2) Wall painting / भित्ति चित्रण

(3) Oil painting / तैल चित्रण

(4) Fresco / फ़्रेस्को

Q.187 Which of the following two architectural styles became the most prominent in Western Europe after the year 1000?

वर्ष 1000 के बाद पश्चिमी यूरोप में निम्नलिखित में से कौन-सी दो वास्तुकला शैलियाँ सबसे प्रमुख हो गईं?

(1) Italian and France / इतालवी और फ़्रांसीसी

(2) Christian and Byzantine / ईसाई और बाइज़ेंटाइन

(3) American and German / अमेरिकी और जर्मन

(4) **Romanesque and Gothic / रोमनस्क और गोथिक ✔**

Q.188 Which of the following religions' tradition is associated with the Bagh Caves?

बाघ गुफाएँ निम्नलिखित में से किस धर्म की परंपरा से संबद्ध हैं?

(1) Sikhism / सिख धर्म

(2) **Buddhism / बौद्ध धर्म ✔**

(3) Hinduism / हिंदू धर्म

(4) Jainism / जैन धर्म

Q.189 Which artistic form flourished in Momoyama-period castles, reflecting the tastes of warrior patrons?

योद्धा संरक्षकों की रुचियों को दर्शाते हुए, मोमोयामा काल के किलों में कौन-सा कलात्मक रूप विकसित हुआ?

(1) **Large-scale folding screens (byobu) with gold and landscape motifs / स्वर्ण और भूदृश्य अभिप्रायों वाले बड़े आकार के फ़ोल्डिंग स्क्रीन (ब्योबू) ✔**

(2) Monochrome portrait scrolls / एकवर्णी व्यक्तिचित्र स्क्रॉल

(3) Tea bowl raku ware / चाय के कटोरे राकू पात्र

(4) Miniature woodblock prints / लघु काष्ठ-ठप्पा (वुडब्लॉक) छापे

Q.190 The famous 'Basohli Painting' - popular for its miniature art style is from:

अपनी लघुचित्र कला शैली के लिए लोकप्रिय प्रसिद्ध 'बसोहली चित्रकला' कहाँ से है?

(1) Kathua district / कठुआ जिला ✔

(2) Samba district / सांबा जिला

(3) Rajouri district / राजौरी जिला

(4) Baramulla district / बारामूला जिला

Q.191 Who was Abhinavagupta known as?

अभिनवगुप्त को किस रूप में जाना जाता था?

(1) Author / लेखक

(2) Historian / इतिहासकार

(3) Archaeologist / पुरातत्वविद्

(4) Philosopher / दार्शनिक ✔

Q.192 Kant's idea of the sublime differs from the beautiful, in that:

कांट का उदात्त (सब्लाइम) का विचार सुंदर से इस अर्थ में भिन्न है कि:

(1) it evokes awe, even fear, by surpassing human limits / यह मानवीय सीमाओं का अतिक्रमण करके विस्मय, यहाँ तक कि भय भी उत्पन्न करता है ✔

(2) it triggers calm pleasure and harmony / यह शांत आनंद और सामंजस्य उत्पन्न करता है

(3) it can only be appreciated through logic / इसकी सराहना केवल तर्क के माध्यम से की जा सकती है

(4) it is confined to natural objects / यह प्राकृतिक वस्तुओं तक सीमित है

Q.193 Amrita Sher-Gil was influenced by which European art movement during her studies in Paris?

पेरिस में अपने अध्ययन के दौरान अमृता शेरगिल किस यूरोपीय कला आंदोलन से प्रभावित थीं?

(1) Cubism / घनवाद (क्यूबिज़्म)

(2) Post impressionism / उत्तर-प्रभाववाद ✔

(3) Futurism / भविष्यवाद (फ़्यूचरिज़्म)

(4) Surrealism / अतियथार्थवाद (सर्रियलिज़्म)

Q.194 CG Jung's idea of the 'shadow' in art refers to:

कला में सी.जी. युंग के 'छाया' (शैडो) के विचार का अर्थ है:

(1) negative space in composition / संयोजन में रिक्त स्थान (नेगेटिव स्पेस)

(2) the unconscious aspects of the personality, often repressed / व्यक्तित्व के अचेतन पहलू, जो प्रायः दमित होते हैं ✔

(3) the use of lighting in visual art / दृश्य कला में प्रकाश व्यवस्था का प्रयोग

(4) the literal depiction of darkness / अंधकार का शाब्दिक चित्रण

Q.195 Which of the following statements is true about the 'Rashtrakuta dynasty' and their contributions to Indian art?

'राष्ट्रकूट राजवंश' और भारतीय कला में उनके योगदान के बारे में निम्नलिखित में से कौन-सा कथन सत्य है?

(1) The Ellora Caves, known for their rock-cut architecture, were completed during the Rashtrakuta period, and the most famous among them is the Kailasa temple. / अपनी शैलकृत वास्तुकला के लिए प्रसिद्ध एलोरा की गुफाएँ राष्ट्रकूट काल के दौरान पूर्ण हुईं, और उनमें सबसे प्रसिद्ध कैलाश मंदिर है। ✔

(2) The Rashtrakutas were primarily patrons of Buddhist art and left behind numerous stupas and monasteries. / राष्ट्रकूट मुख्य रूप से बौद्ध कला के संरक्षक थे और उन्होंने अनेक स्तूप और विहार छोड़े।

(3) The Rashtrakutas are credited with constructing the Sun Temple at Konark, which is known for its intricate carvings. / राष्ट्रकूटों को कोणार्क के सूर्य मंदिर के निर्माण का श्रेय दिया जाता है, जो अपनी जटिल नक्काशी के लिए जाना जाता है।

(4) The Rashtrakutas contributed significantly to Mughal miniature painting, which flourished under their rule. / राष्ट्रकूटों ने मुगल लघुचित्रकला में महत्वपूर्ण योगदान दिया, जो उनके शासन में फली-फूली।

Q.196 What was the printing press started by Raja Ravi Varma called?

राजा रवि वर्मा द्वारा प्रारंभ की गई प्रिंटिंग प्रेस को क्या कहा जाता था?

(1) Ravi Art Press / रवि आर्ट प्रेस

(2) Ravi Varma Fine Art Lithographic Press / रवि वर्मा फ़ाइन आर्ट लिथोग्राफ़िक प्रेस ✔

(3) Varma's Lithographic Press / वर्मा'ज़ लिथोग्राफ़िक प्रेस

(4) Bombay Fine Art Lithographic Works / बॉम्बे फ़ाइन आर्ट लिथोग्राफ़िक वर्क्स

Q.197 The Rococo style is most closely associated with which of the following?

रोकोको शैली निम्नलिखित में से किससे सर्वाधिक निकटता से संबद्ध है?

(1) Revolutionary propaganda / क्रांतिकारी प्रचार

(2) Courtly elegance, pastel colours, and playful eroticism / दरबारी लालित्य, हल्के (पेस्टल) रंग और चंचल कामुकता ✔

(3) Heroic realism and national identity / वीरतापूर्ण यथार्थवाद और राष्ट्रीय पहचान

(4) Monumental religious sculpture / विशाल धार्मिक मूर्तिकला

Q.198 Which artist painted the mural of 'Tripura Sundari Devi' under Kullu school?

कुल्लू शैली के अंतर्गत 'त्रिपुर सुंदरी देवी' का भित्तिचित्र किस कलाकार ने बनाया था?

(1) Trilok Chand / त्रिलोक चंद

(2) Sajanu / सजनू ✔

(3) Sahibram / साहिबराम

(4) Nand Gopal / नंद गोपाल

Q.199 Which of the following subjects is/are most commonly depicted in Kota paintings?

कोटा चित्रों में निम्नलिखित में से कौन-सा/से विषय सबसे अधिक चित्रित किया जाता है/किए जाते हैं?

(1) Portraits of Mughal emperors / मुगल बादशाहों के व्यक्तिचित्र

(2) Mythological themes / पौराणिक विषय

(3) Landscapes and flora / भूदृश्य और वनस्पति

(4) Hunting scenes and royal processions / शिकार के दृश्य और शाही जुलूस ✔

Q.200 KCS Panikar was the principal of which major art institution?

के.सी.एस. पणिक्कर किस प्रमुख कला संस्थान के प्रधानाचार्य थे?

(1) College of Arts, Lucknow / कला महाविद्यालय, लखनऊ

(2) College of Art, Delhi / कला महाविद्यालय, दिल्ली

(3) Government College of Fine Arts, Chennai / राजकीय ललित कला महाविद्यालय, चेन्नई ✓

(4) Faculty of Fine Arts, MS University, Baroda / ललित कला संकाय, एम.एस. विश्वविद्यालय, बड़ौदा

Answer Key / उत्तर कुंजी

1 1	**2** 2	**3** 4	**4** 2	**5** 4	**6** 2	**7** 4	**8** 2	**9** 4	**10** 4	**11** 2	**12** 2	**13** 4	**14** 1	**15** 2
16 3	**17** 2	**18** 1	**19** 1	**20** 3	**21** 4	**22** 2	**23** 3	**24** 2	**25** 3	**26** 4	**27** 4	**28** 3	**29** 3	**30** 3
31 1	**32** 1	**33** 2	**34** 2	**35** 1	**36** 1	**37** 2	**38** 2	**39** 2	**40** 1	**41** 2	**42** 1	**43** 3	**44** 3	**45** 3
46 3	**47** 3	**48** 2	**49** 2	**50** 4	**51** 1	**52** 4	**53** 3	**54** 2	**55** 2	**56** 3	**57** 3	**58** 1	**59** 1	**60** 3
61 4	**62** 4	**63** 1	**64** 2	**65** 1	**66** 4	**67** 2	**68** 1	**69** 1	**70** 4	**71** 4	**72** 2	**73** 3	**74** 4	**75** 3
76 4	**77** 4	**78** 1	**79** 4	**80** 1	**81** 3	**82** 1	**83** 1	**84** 4	**85** 4	**86** 4	**87** 3	**88** 4	**89** 1	**90** 4
91 1	**92** 2	**93** 3	**94** 2	**95** 1	**96** 2	**97** 1	**98** 2	**99** 2	**100** 4	**101** 1	**102** 2	**103** 3	**104** 1	**105** 2
106 1	**107** 4	**108** 1	**109** 2	**110** 2	**111** 4	**112** 1	**113** 1	**114** 4	**115** 3	**116** 1	**117** 1	**118** 1	**119** 4	**120** 3
121 2	**122** 3	**123** 4	**124** 4	**125** 3	**126** 2	**127** 2	**128** 4	**129** 4	**130** 2	**131** 2	**132** 2	**133** 2	**134** 2	**135** 1
136 4	**137** 1	**138** 3	**139** 1	**140** 4	**141** 1	**142** 3	**143** 3	**144** 3	**145** 4	**146** 2	**147** 2	**148** 4	**149** 4	**150** 4
151 2	**152** 4	**153** 1	**154** 1	**155** 4	**156** 2	**157** 3	**158** 4	**159** 1	**160** 2	**161** 1	**162** 2	**163** 4	**164** 4	**165** 3
166 3	**167** 1	**168** 4	**169** 4	**170** 3	**171** 4	**172** 4	**173** 2	**174** 3	**175** 1	**176** 4	**177** 2	**178** 3	**179** 3	**180** 2
181 3	**182** 4	**183** 1	**184** 3	**185** 1	**186** 1	**187** 4	**188** 2	**189** 1	**190** 1	**191** 4	**192** 1	**193** 2	**194** 2	**195** 1
196 2	**197** 2	**198** 2	**199** 4	**200** 3										

QuickSarkari.com | WhatsApp Channel | Telegram: t.me/quick_sarkari

DSSSB Exam August 2025

Participant ID	
Participant Name	
Test Center Name	iON Digital Zone iDZ 1 Sector 62
Test Date	29/08/2025
Test Time	1:00 PM - 3:00 PM
Subject	Drawing Teacher

Section : **General intelligence and Reasoning Ability**

Q.1 **Which two numbers should be interchanged to make the following equation correct? (Note: The entire number should be interchanged and not individual digits of a given number.)**

(32 − 11) × 4 + (9 × 3) + (7 × 8) + (26 ÷ 2) = 159

Ans
✔ 1. 32 and 26
✘ 2. 8 and 11
✘ 3. 11 and 7
✘ 4. 4 and 3

Question ID : **441009980474**
Option 1 ID : **4410093874374**
Option 2 ID : **4410093874377**
Option 3 ID : **4410093874375**
Option 4 ID : **4410093874376**

Q.2 **9 is related to 19.8 following a certain logic. Following the same logic, 4 is related to 8.8. To which of the given options is 7 related, following the same logic?**

(NOTE: Operations should be performed on the whole numbers, without breaking down the numbers into their constituent digits. E.g. 13 – Operations on 13 such as adding to/subtracting from/multiplying with 13 can be performed. Breaking down 13 into 1 and 3 and then performing mathematical operations on 1 and 3 is not allowed.)

62

Ans
✘ 1. 14.8
✔ 2. 15.4
✘ 3. 15.8
✘ 4. 16.4

Question ID : **441009590084**
Option 1 ID : **4410092315449**
Option 2 ID : **4410092315452**
Option 3 ID : **4410092315451**
Option 4 ID : **4410092315450**

QuickSarkari.com | WhatsApp Channel | Telegram: t.me/quick_sarkari

Q.3 Select the set in which the numbers are related in the same way as are the numbers of the following sets.
(NOTE: Operations should be performed on the whole numbers, without breaking down the numbers into their constituent digits. E.g. 13 – Operations on 13 such as adding to/subtracting from/multiplying with 13 can be performed. Breaking down 13 into 1 and 3 and then performing mathematical operations on 1 and 3 is not allowed.)

(32, 38, 45)
(41, 47, 54)5192

Ans
✗ 1. (24, 31, 39)
✗ 2. (48, 53, 59)
✗ 3. (50, 56, 61)
✓ 4. (39, 45, 52)

Question ID : **441009588758**
Option 1 ID : **4410092310158**
Option 2 ID : **4410092310160**
Option 3 ID : **4410092310161**
Option 4 ID : **4410092310159**

Q.4 Refer to the given number and symbol series and answer the question that follows. Counting to be done from left to right only.

(Left) 1 4 6 # 7 ^ 9 # 2 ! 4 6 % 7 8 # 4 6 1 @ 8 & 6 (Right)

How many such symbols are there, each of which is immediately preceded by an odd number but not immediately followed by an even number?

Ans
✗ 1. Zero
✓ 2. One
✗ 3. Two
✗ 4. Three

Question ID : **441009981027**
Option 1 ID : **4410093876577**
Option 2 ID : **4410093876576**
Option 3 ID : **4410093876575**
Option 4 ID : **4410093876574**

QuickSarkari.com | WhatsApp Channel | Telegram: t.me/quick_sarkari

Q.5 **Select the correct mirror image of the given figure when the mirror is placed at MN as shown below.**

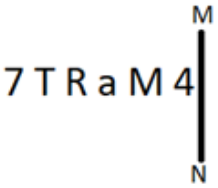

Ans

✗ 1. 

✗ 2. 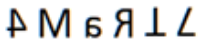

✗ 3. 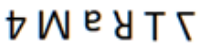

✓ 4. 

Question ID : **441009906256**
Option 1 ID : **4410093578834**
Option 2 ID : **4410093578832**
Option 3 ID : **4410093578833**
Option 4 ID : **4410093578835**

Q.6 **Select the pair which follows the same pattern as that followed by the two pairs given below.**
Both pairs follow the same pattern.
RQJ : PTG
QRN : OUK

Ans

✗ 1. JHM : HKK

✓ 2. PEL : NHI

✗ 3. KHH : IKF

✗ 4. YBK : WEG

Question ID : **441009808046**
Option 1 ID : **4410093186308**
Option 2 ID : **4410093186307**
Option 3 ID : **4410093186310**
Option 4 ID : **4410093186309**

Q.7 **What will come in place of the question marrk (?) in the following equation, if '÷' and '−' are interchanged and '×' and '+' are interchanged?**
19 ÷ 5 + 4 − 2 × 14 =?

5555

Ans

✗ 1. 33

✗ 2. 35

✗ 3. 21

✓ 4. 23

Question ID : **441009556020**
Option 1 ID : **4410092179396**
Option 2 ID : **4410092179394**
Option 3 ID : **4410092179395**
Option 4 ID : **4410092179397**

QuickSarkari.com | WhatsApp Channel | Telegram: t.me/quick_sarkari

Q.8 In a certain code language, 'play cricket everyday' is coded as 'nz wf zy' and 'cricket is entertaining' is coded as 'sq rv wf'. How is 'cricket' coded in that language?

Ans
✗ 1. nz
✓ 2. wf
✗ 3. zy
✗ 4. sq

Question ID : **441009981660**
Option 1 ID : **4410093879107**
Option 2 ID : **4410093879106**
Option 3 ID : **4410093879108**
Option 4 ID : **4410093879109**

Q.9 GLPW is related to AFJQ in a certain way based on the English alphabetical order. In the same way, INRY is related to CHLS. To which of the following options is QVZG related, following the same logic?

Ans
✗ 1. KTAP
✗ 2. KTPA
✗ 3. KPAT
✓ 4. KPTA

Question ID : **441009814429**
Option 1 ID : **4410093211842**
Option 2 ID : **4410093211841**
Option 3 ID : **4410093211840**
Option 4 ID : **4410093211839**

Q.10 Morries ranked 91st from the bottom and 65th from the top in his class. How many students are there in his class?10620

Ans
✗ 1. 101
✗ 2. 146
✗ 3. 98
✓ 4. 155

Question ID : **441009764772**
Option 1 ID : **4410093013082**
Option 2 ID : **4410093013083**
Option 3 ID : **4410093013081**
Option 4 ID : **4410093013084**

QuickSarkari.com | WhatsApp Channel | Telegram: t.me/quick_sarkari

Q.11 What should come in place of the question mark (?) in the given series?

7 21 63 189 567 ?35

Ans
1. 1700
2. 1701
3. 1703
4. 1702

Question ID : **441009590057**
Option 1 ID : **4410092315343**
Option 2 ID : **4410092315341**
Option 3 ID : **4410092315344**
Option 4 ID : **4410092315342**

Q.12 Based on the English alphabetical order, three of the following four letter-clusters are alike in a certain way and thus form a group. Which letter-cluster DOES NOT belong to that group?

(Note: The odd one out is not based on the number of consonants/vowels or their position in the letter-cluster.)

Ans
1. GJI
2. MRQ
3. JML
4. SVU

Question ID : **441009981177**
Option 1 ID : **4410093877175**
Option 2 ID : **4410093877176**
Option 3 ID : **4410093877174**
Option 4 ID : **4410093877177**

Q.13 Refer to the given number and symbol series and answer the question that follows. Counting to be done from left to right only.

(Left) 3 6 & 8 % 4 # 2 1 @ # 5 7 > & 6 4 3 < 8 7 2 > 7 5 (Right)

How many such symbols are there, each of which is immediately preceded by an odd number but NOT immediately followed by an even number?

Ans
1. Four
2. Three
3. One
4. Two

Question ID : **441009981026**
Option 1 ID : **4410093876570**
Option 2 ID : **4410093876571**
Option 3 ID : **4410093876573**
Option 4 ID : **4410093876572**

QuickSarkari.com | WhatsApp Channel | Telegram: t.me/quick_sarkari

Q.14 A, B, C, D, E, F and G are sitting around a circular table facing the centre. A sits third to the left of F. Only one person sits between F and B when counted from the left of B. Only two people sit between D and G when counted from the right of G. E is an immediate neighbour of D. Who sits third to the right of C?

Ans
✔ 1. A
✘ 2. E
✘ 3. G
✘ 4. B

Question ID : **441009814527**
Option 1 ID : **4410093212231**
Option 2 ID : **4410093212234**
Option 3 ID : **4410093212233**
Option 4 ID : **4410093212232**

Q.15 In a certain code language, 'money make rich' is coded as 'xj kd io', and 'some rich have' is coded as 'ng ik io'. How is 'rich' coded in that language? (All codes are two-letter codes.)

Ans
✘ 1. kd
✔ 2. io
✘ 3. xj
✘ 4. ng

Question ID : **441009981513**
Option 1 ID : **4410093878521**
Option 2 ID : **4410093878519**
Option 3 ID : **4410093878518**
Option 4 ID : **4410093878520**

Q.16 Read the given statement(s) and conclusions carefully. Assuming that the information given in the statement(s) is true, even if it appears to be at variance with commonly known facts, decide which of the given conclusions logically follow(s) from the statement(s).

Statements:
All potatoes are tomatoes.
Some tomatoes are yellow.
All yellow are capsicums.

Conclusion:
(I) Some tomatoes are capsicums.
(II) Some potatoes are tomatoes. 12664

Ans
✘ 1. Only conclusion (I) follows.
✘ 2. Only conclusion (II) follows.
✔ 3. Both conclusion (I) and (II) follow.
✘ 4. Neither conclusion (I) nor (II) follows.

Question ID : **441009733134**
Option 1 ID : **4410092886288**
Option 2 ID : **4410092886289**
Option 3 ID : **4410092886291**
Option 4 ID : **4410092886290**

Q.17 J, K, L, O, P and Q live on six different floors of the same building. The lowermost floor in the building is numbered 1, the floor above it is numbered 2 and so on till the topmost floor is numbered 6. Only two people live between Q and J. Only two people live between K and O. No one lives above K. J lives below O but above P. How many people live below L?

Ans
✗ 1. Two
✓ 2. Three
✗ 3. One
✗ 4. Four

Question ID : **441009816504**
Option 1 ID : **4410093220141**
Option 2 ID : **4410093220140**
Option 3 ID : **4410093220142**
Option 4 ID : **4410093220139**

Q.18 What should come in place of the question mark (?) in the given series?

49 52 57 60 65 ?40

Ans
✓ 1. 68
✗ 2. 67
✗ 3. 70
✗ 4. 69

Question ID : **441009590062**
Option 1 ID : **4410092315361**
Option 2 ID : **4410092315362**
Option 3 ID : **4410092315364**
Option 4 ID : **4410092315363**

Q.19 Based on the English alphabetical order, three of the following four letter-clusters are alike in a certain way and thus form a group. Which letter-cluster DOES NOT belong to that group? (Note: The odd one out is not based on the number of consonants/vowels or their position in the letter-cluster.)

Ans
✓ 1. UZB
✗ 2. TXA
✗ 3. QUX
✗ 4. DHK

Question ID : **441009981667**
Option 1 ID : **4410093879134**
Option 2 ID : **4410093879136**
Option 3 ID : **4410093879135**
Option 4 ID : **4410093879137**

Q.20 In a certain code language,
'A + B' means 'A is the father of B',
'A – B' means 'A is the sister of B',
'A × B' means 'A is the husband of B' and
'A ÷ B' means 'A is the son of B'.

Based on the above information, how is K related to A if 'B × E – A + R ÷ K'?

Ans
✗ 1. Son's daughter
✗ 2. Sister
✓ 3. Wife
✗ 4. Daughter

Question ID : **441009731984**
Option 1 ID : **4410092881691**
Option 2 ID : **4410092881689**
Option 3 ID : **4410092881690**
Option 4 ID : **4410092881688**

Section : **General Awareness**

Q.1 On which of the following dates is the International Day of Non-Violence observed?

Ans
✗ 1. 2 November
✗ 2. 2 December
✗ 3. 2 January
✓ 4. 2 October

Question ID : **441009972445**
Option 1 ID : **4410093842822**
Option 2 ID : **4410093842823**
Option 3 ID : **4410093842824**
Option 4 ID : **4410093842821**

Q.2 What is the length of India's coastline in the mainland?

Ans
✗ 1. 6,548 km
✓ 2. 6,100 km
✗ 3. 7,215 km
✗ 4. 7,517 km

Question ID : **441009638218**
Option 1 ID : **4410092507017**
Option 2 ID : **4410092507015**
Option 3 ID : **4410092507018**
Option 4 ID : **4410092507016**

QuickSarkari.com | WhatsApp Channel | Telegram: t.me/quick_sarkari

Q.3 If the general price level increases, the purchasing power of money:

Ans
✗ 1. Increases
✗ 2. Doubles
✓ 3. Decreases
✗ 4. Stays the same

Question ID : **441009973948**
Option 1 ID : **4410093848833**
Option 2 ID : **4410093848836**
Option 3 ID : **4410093848834**
Option 4 ID : **4410093848835**

Q.4 Which of the following mountain ranges defines India's northern boundary?

Ans
✗ 1. The Aravalli Range
✓ 2. The Himalayas
✗ 3. The Eastern Ghats
✗ 4. The Western Ghats

Question ID : **441009974849**
Option 1 ID : **4410093852439**
Option 2 ID : **4410093852437**
Option 3 ID : **4410093852440**
Option 4 ID : **4410093852438**

Q.5 Defence Secretary Rajesh Kumar Singh launched the Rashtraparv Website along with its Mobile App on Dec 25, 2024 on the occasion of 'Good Governance Day' commemorating the birth anniversary of former Prime Minister _____.

Ans
✗ 1. Inder Kumar Gujral
✗ 2. Haradanahalli Doddegowda Deve Gowda
✓ 3. Atal Bihari Vajpayee
✗ 4. Vishwanath Pratap Singh

Question ID : **441009630832**
Option 1 ID : **4410092477477**
Option 2 ID : **4410092477475**
Option 3 ID : **4410092477476**
Option 4 ID : **4410092477478**

Q.6 In which year was Odia given Classical Language status?

Ans
✗ 1. 2011
✗ 2. 2015
✗ 3. 2012
✓ 4. 2014

Question ID : **441009972288**
Option 1 ID : **4410093842193**
Option 2 ID : **4410093842196**
Option 3 ID : **4410093842194**
Option 4 ID : **4410093842195**

Q.7 The Caves of Bhimbetka in Madhya Pradesh are famous for _____.

Ans
✗ 1. Rock-cut temples
✗ 2. Ancient manuscripts
✗ 3. Buddhist stupas
✓ 4. Rock paintings

Question ID : **441009973113**
Option 1 ID : **4410093845494**
Option 2 ID : **4410093845496**
Option 3 ID : **4410093845495**
Option 4 ID : **4410093845493**

Q.8 Which of the following is NOT among the five-kingdom classification proposed by RH Whittaker?

Ans
✗ 1. Monera
✗ 2. Fungi
✓ 3. Xylem
✗ 4. Protista

Question ID : **4410091050716**
Option 1 ID : **4410094151933**
Option 2 ID : **4410094151936**
Option 3 ID : **4410094151935**
Option 4 ID : **4410094151934**

Q.9 In which of the following states is Kannada used as the official language?

Ans
✗ 1. Andhra Pradesh
✗ 2. Tamil Nadu
✓ 3. Karnataka
✗ 4. Kerala

Question ID : **441009972484**
Option 1 ID : **4410093842979**
Option 2 ID : **4410093842980**
Option 3 ID : **4410093842977**
Option 4 ID : **4410093842978**

Q.10 Where was the first meeting of the Indian National Congress held?

Ans
✗ 1. Calcutta
✗ 2. Delhi
✓ 3. Bombay
✗ 4. Madras

Question ID : **441009973120**
Option 1 ID : **4410093845522**
Option 2 ID : **4410093845521**
Option 3 ID : **4410093845523**
Option 4 ID : **4410093845524**

QuickSarkari.com | WhatsApp Channel | Telegram: t.me/quick_sarkari

Q.11 When were the Minto Morley Reforms passed by the British Parliament?

Ans ✔ 1. 1909

✗ 2. 1908

✗ 3. 1911

✗ 4. 1910

Question ID : **441009972932**
Option 1 ID : **4410093844770**
Option 2 ID : **4410093844772**
Option 3 ID : **4410093844771**
Option 4 ID : **4410093844769**

Q.12 Indian Air Force approved the production of Astra Mark-1(MK-1) missile. Which of the following types of missile is Astra Mark-1?

Ans ✔ 1. Air to Air

✗ 2. Surface to Air

✗ 3. Surface to Surface

✗ 4. Air to Surface

Question ID : **441009995263**
Option 1 ID : **4410093933076**
Option 2 ID : **4410093933075**
Option 3 ID : **4410093933077**
Option 4 ID : **4410093933074**

Q.13 Which of the following statements are correct?

1. Workers that are engaged by someone or an enterprise and are paid their wages on a regular basis are called regular salaried employees.
2. Workers who own and operate an enterprise to earn their livelihood are called self-employed.
3. Construction workers are called casual wage labourers.

Ans ✗ 1. Only 2 and 3

✔ 2. 1, 2 and 3

✗ 3. Only 1 and 3

✗ 4. Only 1 and 2

Question ID : **441009974014**
Option 1 ID : **4410093849098**
Option 2 ID : **4410093849100**
Option 3 ID : **4410093849099**
Option 4 ID : **4410093849097**

QuickSarkari.com | WhatsApp Channel | Telegram: t.me/quick_sarkari

Q.14 The 78th Senior National Aquatic Championships (Swimming) were conducted in June 2025 in which of the following cities?

Ans
✗ 1. Ahmedabad
✓ 2. Bhubaneswar
✗ 3. Bengaluru
✗ 4. New Delhi

Question ID : **441009992445**
Option 1 ID : **4410093921909**
Option 2 ID : **4410093921910**
Option 3 ID : **4410093921911**
Option 4 ID : **4410093921908**

Q.15 Which of the following diseases, usually caused by vitamin B1 deficiency, exhibits loss of muscle function or paralysis of lower limbs as common symptoms?

Ans
✓ 1. Beri-beri
✗ 2. Scurvy
✗ 3. Pellagra
✗ 4. Pernicious anemia

Question ID : **4410091050688**
Option 1 ID : **4410094151822**
Option 2 ID : **4410094151823**
Option 3 ID : **4410094151821**
Option 4 ID : **4410094151824**

Q.16 Which of the following age groups of women is generally taken while calculating the 'Fertility Rate'?

Ans
✓ 1. 15 to 49 years
✗ 2. 21 to 45 years
✗ 3. 18 to 59 years
✗ 4. 13 to 45 years

Question ID : **441009974601**
Option 1 ID : **4410093851447**
Option 2 ID : **4410093851445**
Option 3 ID : **4410093851446**
Option 4 ID : **4410093851448**

Q.17 The impeachment charges on the President of India can be initiated in either House of Parliament. These charges should be signed by _____ of members of that particular House.

Ans
✗ 1. one-third
✓ 2. one-fourth
✗ 3. one-sixth
✗ 4. one-tenth

Question ID : **441009973833**
Option 1 ID : **4410093848373**
Option 2 ID : **4410093848374**
Option 3 ID : **4410093848376**
Option 4 ID : **4410093848375**

QuickSarkari.com | WhatsApp Channel | Telegram: t.me/quick_sarkari

Q.18 Which of the following concepts was NOT present in the Preamble of the Indian Constitution before 1976?

Ans
✗ 1. Sovereign
✓ 2. Socialist
✗ 3. Democratic
✗ 4. Justice

Question ID : **441009973844**
Option 1 ID : **4410093848418**
Option 2 ID : **4410093848419**
Option 3 ID : **4410093848420**
Option 4 ID : **4410093848417**

Q.19 What is the difference between the interest rate paid by banks to depositors and the interest rate charged from borrowers called?

Ans
✗ 1. Profit margin
✓ 2. Spread
✗ 3. Cash reserve
✗ 4. Liquidity ratio

Question ID : **441009973945**
Option 1 ID : **4410093848824**
Option 2 ID : **4410093848821**
Option 3 ID : **4410093848822**
Option 4 ID : **4410093848823**

Q.20 Which of the following statements is/are correct regarding the executive powers of the Union vested in the President of India?
1. Article 53 deals with the executive powers of the President of India.
2. Article 75 requires the Prime Minister to communicate to the President regarding all decisions of the Union Council of Ministers.
3. Article 77 holds that all executive powers of the Union government shall be exercised in the name of the President.

Ans
✓ 1. Only 1 and 3
✗ 2. 1, 2 and 3
✗ 3. Only 1 and 2
✗ 4. Only 2 and 3

Question ID : **441009973188**
Option 1 ID : **4410093845794**
Option 2 ID : **4410093845796**
Option 3 ID : **4410093845793**
Option 4 ID : **4410093845795**

Section : **Arithmetical and Numerical Ability**

Q.1 The arithmetic mean of the observations 13, 46, 21, 47, 43, 51, 11, 82 and 28 is:6397

Ans
✗ 1. 30
✓ 2. 38
✗ 3. 35
✗ 4. 45

Question ID : **441009583301**
Option 1 ID : **4410092288331**
Option 2 ID : **4410092288330**
Option 3 ID : **4410092288333**
Option 4 ID : **4410092288332**

Q.2 Find the simple interest (in ₹) on ₹2,000 as a sum borrowed at 9% per year rate of interest for 5 years.4566

Ans
✓ 1. 900
✗ 2. 940
✗ 3. 840
✗ 4. 860

Question ID : **441009897879**
Option 1 ID : **4410093545586**
Option 2 ID : **4410093545587**
Option 3 ID : **4410093545588**
Option 4 ID : **4410093545589**

Q.3 A man purchases 200 items at ₹150 each. He sells 80 of them at a 10% profit, 60 of them at a 15% profit, and the remaining 60 at a 20% profit. What is the overall profit percentage on the total cost price?

Ans
✗ 1. 12.5%
✗ 2. 16.5%
✓ 3. 14.5%
✗ 4. 13.5%

Question ID : **441009928873**
Option 1 ID : **4410093669465**
Option 2 ID : **4410093669468**
Option 3 ID : **4410093669467**
Option 4 ID : **4410093669466**

Q.4 Calculate the surface area of a spherical water tank of radius 21 cm. (1

9

Ans
✗ 1. 5294 cm^2
✗ 2. 5758 cm^2
✓ 3. 5544 cm^2
✗ 4. 5344 cm^2

Question ID : **441009602640**
Option 1 ID : **4410092365678**
Option 2 ID : **4410092365680**
Option 3 ID : **4410092365677**
Option 4 ID : **4410092365679**

Q.5 Rajni scored twice as many marks as Preeti in an exam. What percentage of Rajni's marks did Preeti score?

Ans
✗ 1. 100%
✗ 2. 25%
✓ 3. 50%
✗ 4. 75%

Question ID : **441009928783**
Option 1 ID : **4410093669108**
Option 2 ID : **4410093669105**
Option 3 ID : **4410093669106**
Option 4 ID : **4410093669107**

Q.6 If the marked price of a bedcover is 50% more than its cost price and a discount of 10% is announced on it, then find the profit percentage.489

Ans
✗ 1. 37%
✗ 2. 38%
✓ 3. 35%
✗ 4. 34%

Question ID : **441009893802**
Option 1 ID : **4410093529279**
Option 2 ID : **4410093529280**
Option 3 ID : **4410093529278**
Option 4 ID : **4410093529281**

Q.7 Observe the given multiple bar graph showing the income and expenditure (in ₹ crores) of five companies and answer the question that follows.

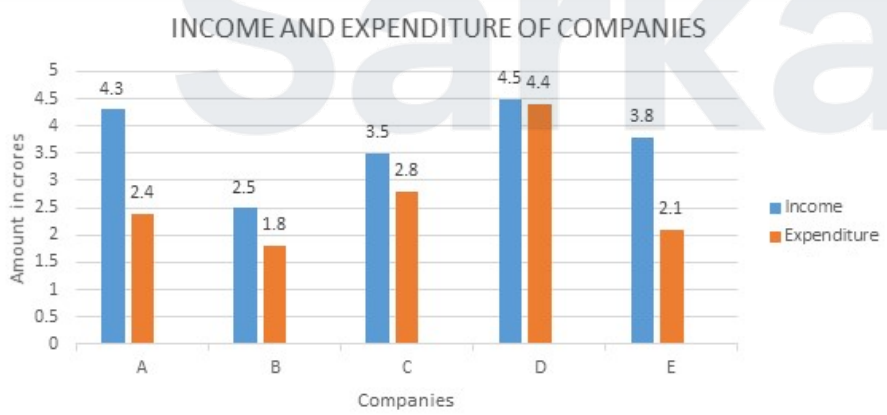

The difference in the savings of Company A and Company C (in ₹ crores) is:

Ans
✗ 1. 1.6
✗ 2. 1.8
✓ 3. 1.2
✗ 4. 1.4

Question ID : **441009986364**
Option 1 ID : **4410093897745**
Option 2 ID : **4410093897748**
Option 3 ID : **4410093897746**
Option 4 ID : **4410093897747**

Q.8 A and B can do a piece of work in 5 days. B and C can do the same work in 7 days, while C and A can do it in 10 days. Find the time in which A, B and C can finish the work, working together.

Ans
1. $2\frac{16}{31}$ days
2. $4\frac{16}{31}$ days
3. $3\frac{16}{31}$ days
4. $1\frac{16}{31}$ days

Question ID : **441009916569**
Option 1 ID : **4410093620529**
Option 2 ID : **4410093620528**
Option 3 ID : **4410093620527**
Option 4 ID : **4410093620530**

Q.9 The fourth proportional to 18, a and 3a is 24. What is the positive value of a?

Ans
1. 15
2. 12
3. 14
4. 9

Question ID : **441009898153**
Option 1 ID : **4410093546685**
Option 2 ID : **4410093546682**
Option 3 ID : **4410093546684**
Option 4 ID : **4410093546683**

Q.10 If the surface area of a sphere is 9856 cm^2, then find the radius of the sphere in cm. (Use π = 22/7)

Ans
1. 29
2. 27
3. 26
4. 28

Question ID : **441009988863**
Option 1 ID : **4410093907758**
Option 2 ID : **4410093907760**
Option 3 ID : **4410093907757**
Option 4 ID : **4410093907759**

QuickSarkari.com | WhatsApp Channel | Telegram: t.me/quick_sarkari

Q.11 If the price of a book is first decreased by 16% and then increased by 25%, then the net change in the price will be:

Ans
✔ 1. 5% increase
✘ 2. 2.5% decrease
✘ 3. 2.5% increase
✘ 4. 5% decrease

Question ID : **441009916628**
Option 1 ID : **4410093620766**
Option 2 ID : **4410093620763**
Option 3 ID : **4410093620764**
Option 4 ID : **4410093620765**

Q.12 The fourth proportion to 2, 9 and 8 is the same as the third proportion to A and 24. What is the value of A?

Ans
✘ 1. 13
✘ 2. 19
✘ 3. 14
✔ 4. 16

Question ID : **441009898168**
Option 1 ID : **4410093546743**
Option 2 ID : **4410093546745**
Option 3 ID : **4410093546744**
Option 4 ID : **4410093546742**

Q.13 The square root of 1225 is:

Ans
✘ 1. 43
✘ 2. 55
✔ 3. 35
✘ 4. 45

Question ID : **441009951721**
Option 1 ID : **4410093760281**
Option 2 ID : **4410093760282**
Option 3 ID : **4410093760280**
Option 4 ID : **4410093760279**

QuickSarkari.com | WhatsApp Channel | Telegram: t.me/quick_sarkari

Q.14

$$\textit{The value of } 7^3 - 7^2 + \left(\frac{6}{2}\right)^2 - 5 + 7 \times 8 = \_\_\_\_\_$$

?159??

Ans
- ✗ 1. 362
- ✓ 2. 354
- ✗ 3. 363
- ✗ 4. 360

Question ID : **441009928551**
Option 1 ID : **4410093668180**
Option 2 ID : **4410093668177**
Option 3 ID : **4410093668179**
Option 4 ID : **4410093668178**

Q.15 **Manoj goes to the railway station at a speed of 19 km/hr and returns home with a speed of 10 km/hr. If the total time for the journey is 3 hours, 28 minutes and 48 seconds, then find the distance between the house and the railway station.**

Ans
- ✗ 1. 21.4 km
- ✓ 2. 22.8 km
- ✗ 3. 25 km
- ✗ 4. 24.5 km

Question ID : **4410091209187**
Option 1 ID : **4410094770252**
Option 2 ID : **4410094770253**
Option 3 ID : **4410094770255**
Option 4 ID : **4410094770254**

Q.16 **The average weight of five rice sacks is 286.4 kg. The average weight of two rice sacks is 331 kg and the average weight of other two rice sacks is 324.5 kg. Therefore, the weight (in kg) of the remaining fifth rice sack is**

Ans
- ✗ 1. 186
- ✗ 2. 111
- ✓ 3. 121
- ✗ 4. 221

Question ID : **441009916794**
Option 1 ID : **4410093621428**
Option 2 ID : **4410093621430**
Option 3 ID : **4410093621429**
Option 4 ID : **4410093621427**

QuickSarkari.com | WhatsApp Channel | Telegram: t.me/quick_sarkari

Q.17 A man goes to Rajkot from Kalyan-Dombivli at a speed of 72km/hr and returns to Kalyan-Dombivli at speed of 90km/hr, through same route. What is his average speed (in km/hr) of the entire journey?5009

Ans
✗ 1. 76
✗ 2. 78
✓ 3. 80
✗ 4. 86

Question ID : **441009543336**
Option 1 ID : **4410092128742**
Option 2 ID : **4410092128741**
Option 3 ID : **4410092128740**
Option 4 ID : **4410092128743**

Q.18 A and B can do a job in 12 days and 15 days, respectively. A works alone for 4 days and leaves. The number of days required by B to complete the remaining job is:

Ans
✓ 1. 10
✗ 2. 6
✗ 3. 12
✗ 4. 8

Question ID : **441009928701**
Option 1 ID : **4410093668777**
Option 2 ID : **4410093668780**
Option 3 ID : **4410093668778**
Option 4 ID : **4410093668779**

Q.19 The ratio of the cost prices of articles X and Y is 3 : 5. A man earns a profit of 25% by selling X and loses 25% by selling Y. What is his gain/loss percentage in the entire transaction?

Ans
✓ 1. Loss, 6.25%
✗ 2. Loss, 5.75%
✗ 3. Gain, 6.25%
✗ 4. Gain, 7.75%

Question ID : **441009915300**
Option 1 ID : **4410093615451**
Option 2 ID : **4410093615453**
Option 3 ID : **4410093615454**
Option 4 ID : **4410093615452**

QuickSarkari.com | WhatsApp Channel | Telegram: t.me/quick_sarkari

Q.20 In 2015, the population of a village was 25,000. The population has been increasing every year at a rate of 25% from 2010 to 2020. Find the ratio of the population in 2016 to the population in 2014.

Ans
✗ 1. 18 : 11
✗ 2. 16 : 9
✓ 3. 25 : 16
✗ 4. 22 : 15

Question ID : **4410091986911**
Option 1 ID : **4410093899934**
Option 2 ID : **4410093899933**
Option 3 ID : **4410093899936**
Option 4 ID : **4410093899935**

Section : **Test of English Language and Comprehension**

Q.1 Select the most appropriate option that can substitute the underlined segment in the given sentence.

The opposition party machinated an <u>unscrupulous</u> plan to tarnish the government's image.

Ans
✗ 1. Virtuous
✗ 2. Conscientious
✗ 3. Uncrooked
✓ 4. Machiavellian

Question ID : **4410091061218**
Option 1 ID : **4410094193568**
Option 2 ID : **4410094193570**
Option 3 ID : **4410094193571**
Option 4 ID : **4410094193569**

Q.2 Select the most appropriate option to fill in the blank.

No one can surpass Chinki as she is the _____.

Ans
✗ 1. better
✗ 2. crazy
✗ 3. good
✓ 4. best

Question ID : **4410091005561**
Option 1 ID : **4410093973845**
Option 2 ID : **4410093973844**
Option 3 ID : **4410093973846**
Option 4 ID : **4410093973843**

QuickSarkari.com | WhatsApp Channel | Telegram: t.me/quick_sarkari

Q.3 Select the most appropriate ANTONYM of the given word.

Expand

Ans
✔ 1. Contract
✘ 2. Inflate
✘ 3. Lengthen
✘ 4. Conceal

Question ID : **4410091052288**
Option 1 ID : **4410094158224**
Option 2 ID : **4410094158221**
Option 3 ID : **4410094158223**
Option 4 ID : **4410094158222**

Q.4 Select the grammatically correct sentence.

Ans
✘ 1. He looked at a moon.
✔ 2. He looked at the moon.
✘ 3. He looked at an moon.
✘ 4. He looked at moon.

Question ID : **4410091005503**
Option 1 ID : **4410093973611**
Option 2 ID : **4410093973613**
Option 3 ID : **4410093973612**
Option 4 ID : **4410093973614**

Q.5 Sentences of a paragraph are given below. While the first and the last sentences (A1 and A6) are in the correct order, the sentences in between are jumbled up. Arrange the sentences in the correct order to form a meaningful and coherent paragraph.

A1. The process of rearing silkworms and extracting the silk from them is called sericulture.
P. Silk is a very popular fabric due to its softness and luster.
Q. The word silk is derived from Greek term, *Sioloc.*
R. Among various species of silkworms known for commercial purpose, Bombyx Mori is the most extensively cultivated one.
S. It is the caterpillar of domestic silk moth and is known for its shine and sheen.
A6. It is known as *resham* in north and east India and *pattu* in south India.

Ans
✔ 1. PQRS
✘ 2. SRQP
✘ 3. RSPQ
✘ 4. QRSP

Question ID : **4410091061734**
Option 1 ID : **4410094195461**
Option 2 ID : **4410094195462**
Option 3 ID : **4410094195460**
Option 4 ID : **4410094195463**

QuickSarkari.com | WhatsApp Channel | Telegram: t.me/quick_sarkari

Q.6 Select the idiom that conveys the same meaning as the underlined segment in the given sentence.

Our neighbours are <u>always quarrelling and have disagreements</u> over trivial matters.

Ans
✗ 1. Break a leg
✗ 2. Beat around the bush
✗ 3. Through thick and thin
✓ 4. At loggerheads

Question ID : **4410091052322**
Option 1 ID : **4410094158357**
Option 2 ID : **4410094158359**
Option 3 ID : **4410094158358**
Option 4 ID : **4410094158360**

Q.7 Sentences of a paragraph are given below. While the first and the last sentences (A1 and A6) are in the correct order, the sentences in between are jumbled up. Arrange the sentences in the correct order to form a meaningful and coherent paragraph.

A1. Cotton is grown in both tropical and subtropical environment across a country in different soil types.
P. However, Gujarat and Maharashtra lead the tally of cotton production in the country because of climatic conditions.
Q. It ranges from Punjab in North to Tamil Nadu in south in India.
R. Cotton mostly requires well drained soil and an optimal temperature of 20 to 27°C.
S. On the contrary, India has different soil ranging from alluvial in north, red in south, muddy black soil which foster the growth of the crop.
A6. It is a kharif crop and takes six to eight months to complete its production cycle.

Ans
✗ 1. PQRS
✓ 2. RSPQ
✗ 3. QPRS
✗ 4. PQSR

Question ID : **4410091061735**
Option 1 ID : **4410094195464**
Option 2 ID : **4410094195466**
Option 3 ID : **4410094195465**
Option 4 ID : **4410094195467**

Q.8 Select the idiom that conveys the same meaning as the underlined segment in the given sentence.

Climbing this mountain <u>is really easy</u>, even for small kids!258

Ans
✓ 1. A piece of cake
✗ 2. Better late than never
✗ 3. A blessing in disguise
✗ 4. Kill two birds with a stone

Question ID : **4410091052315**
Option 1 ID : **4410094158331**
Option 2 ID : **4410094158330**
Option 3 ID : **4410094158332**
Option 4 ID : **4410094158329**

QuickSarkari.com | WhatsApp Channel | Telegram: t.me/quick_sarkari

Q.9 Select the most appropriate ANTONYM of the given word.

Decipher

Ans
✔ 1. Misunderstand
✘ 2. Decrypt
✘ 3. Equivocal
✘ 4. Assimilate

Question ID : **4410091052395**
Option 1 ID : **4410094158652**
Option 2 ID : **4410094158649**
Option 3 ID : **4410094158651**
Option 4 ID : **4410094158650**

Q.10 Select the option that rectifies the given INCORRECTLY spelt word.

Pneumounia

Ans
✘ 1. Pneumoniaa
✘ 2. Neumonia
✘ 3. Pneumonie
✔ 4. Pneumonia

Question ID : **4410091052613**
Option 1 ID : **4410094159523**
Option 2 ID : **4410094159521**
Option 3 ID : **4410094159522**
Option 4 ID : **4410094159524**

Q.11 Select the most appropriate adjective to fill in the blank.

It's tough to maintain _____ crockery in the house.

Ans
✘ 1. brakeable
✘ 2. breaked
✘ 3. breaking
✔ 4. breakable

Question ID : **4410091005596**
Option 1 ID : **4410093973986**
Option 2 ID : **4410093973985**
Option 3 ID : **4410093973983**
Option 4 ID : **4410093973984**

QuickSarkari.com | WhatsApp Channel | Telegram: t.me/quick_sarkari

Q.12 Select the most appropriate option that can substitute the underlined segment in the given sentence. If there is no need to substitute it, select 'No substitution required'.

My father has seen the much of the plays of Shakespeare acted.

Ans
1. more
2. most
3. No substitution required
4. the little

Question ID : **4410091005444**
Option 1 ID : **4410093973375**
Option 2 ID : **4410093973377**
Option 3 ID : **4410093973378**
Option 4 ID : **4410093973376**

Q.13 Parts of the following sentence have been given as options. Select the option that contains an error.

An Swedish have / one of the best / parental leave / policies in the world.

Ans
1. one of the best
2. policies in the world
3. An Swedish have
4. parental leave

Question ID : **4410091005541**
Option 1 ID : **4410093973764**
Option 2 ID : **4410093973766**
Option 3 ID : **4410093973763**
Option 4 ID : **4410093973765**

Q.14 Select the most appropriate option to fill in the blanks.

In a chemical reaction, the _____ are the substances which undergo certain changes and the _____ are formed as a result of the reaction. 1516

Ans
1. reagent ; upshot
2. elements ; by product
3. catalysts ; stimulants
4. reactants ; products

Question ID : **4410091061788**
Option 1 ID : **4410094195671**
Option 2 ID : **4410094195669**
Option 3 ID : **4410094195670**
Option 4 ID : **4410094195668**

QuickSarkari.com | WhatsApp Channel | Telegram: t.me/quick_sarkari

Q.15 **Select the most appropriate option that can substitute the underlined segment in the given sentence. If there is no need to substitute it, select 'No substitution required'.**

The news is so better as it just can't be true.

Ans

✗ 1. so good too

✗ 2. No substitution required

✓ 3. too good to

✗ 4. as good to

Question ID : **4410091005438**
Option 1 ID : **4410093973351**
Option 2 ID : **4410093973354**
Option 3 ID : **4410093973352**
Option 4 ID : **4410093973353**

Comprehension:

Read the given passage and answer the questions that follow.

The book features everything, from main courses to desserts. Readers likely have the ingredients on hand, making the dishes quick to whip up even if you have no time to head to the store first. Oliver says that as times change, so does peoples' relationship with cooking. He says the average consumer relies on takeout more often and doesn't want a long grocery list or a meal that takes hours to prepare. Oliver says one of the main goals of writing this book was to make fresh, home-cooked meals approachable and attainable for people of all class statuses. "Technology in life is changing our lifestyles. And of course, the food industry wants to fix everything for you. And what happens when that happens is people forget how to cook. And we know that when people forget how to cook, they're not so well," Oliver says. "For me, cooking isn't just about joy and the gorgeousness of serving people that you love, but also it's kind of political and it's about our kids and it's about our futures."

SubQuestion No : 16

Q.16 **From the given options, identify the suitable title for the passage.**

Ans

✗ 1. Goals of writing book

✗ 2. Technology is life changing

✗ 3. Relying on take-out

✓ 4. Relationship with cooking

Question ID : **4410091061981**
Option 1 ID : **4410094196358**
Option 2 ID : **4410094196359**
Option 3 ID : **4410094196361**
Option 4 ID : **4410094196360**

QuickSarkari.com | WhatsApp Channel | Telegram: t.me/quick_sarkari

Comprehension:

Read the given passage and answer the questions that follow.

The book features everything, from main courses to desserts. Readers likely have the ingredients on hand, making the dishes quick to whip up even if you have no time to head to the store first. Oliver says that as times change, so does peoples' relationship with cooking. He says the average consumer relies on takeout more often and doesn't want a long grocery list or a meal that takes hours to prepare. Oliver says one of the main goals of writing this book was to make fresh, home-cooked meals approachable and attainable for people of all class statuses. "Technology in life is changing our lifestyles. And of course, the food industry wants to fix everything for you. And what happens when that happens is people forget how to cook. And we know that when people forget how to cook, they're not so well," Oliver says. "For me, cooking isn't just about joy and the gorgeousness of serving people that you love, but also it's kind of political and it's about our kids and it's about our futures."

SubQuestion No : 17

Q.17 Which of the following statements is NOT TRUE with respect to the passage?

Ans

✗ 1. Cooking is kind of political.

✗ 2. People have forgotten how to cook.

✗ 3. Consumers don't want a long grocery list.

✓ 4. The book features everything about traditional snacks.

Question ID : **4410091061982**
Option 1 ID : **4410094196365**
Option 2 ID : **4410094196364**
Option 3 ID : **4410094196363**
Option 4 ID : **4410094196362**

Comprehension:

Read the given passage and answer the questions that follow.

The book features everything, from main courses to desserts. Readers likely have the ingredients on hand, making the dishes quick to whip up even if you have no time to head to the store first. Oliver says that as times change, so does peoples' relationship with cooking. He says the average consumer relies on takeout more often and doesn't want a long grocery list or a meal that takes hours to prepare. Oliver says one of the main goals of writing this book was to make fresh, home-cooked meals approachable and attainable for people of all class statuses. "Technology in life is changing our lifestyles. And of course, the food industry wants to fix everything for you. And what happens when that happens is people forget how to cook. And we know that when people forget how to cook, they're not so well," Oliver says. "For me, cooking isn't just about joy and the gorgeousness of serving people that you love, but also it's kind of political and it's about our kids and it's about our futures."

SubQuestion No : 18

Q.18 Select the most appropriate ANTONYM of the underlined word in the given sentence.

'...writing this book was to make fresh, home-cooked meals <u>approachable</u> and attainable for people of all class statuses.'

119

Ans

✓ 1. Unapproachable

✗ 2. Inapproachable

✗ 3. Non-approachable

✗ 4. Distant

Question ID : **4410091061983**
Option 1 ID : **4410094196368**
Option 2 ID : **4410094196367**
Option 3 ID : **4410094196366**
Option 4 ID : **4410094196369**

Comprehension:

Read the given passage and answer the questions that follow.

The book features everything, from main courses to desserts. Readers likely have the ingredients on hand, making the dishes quick to whip up even if you have no time to head to the store first. Oliver says that as times change, so does peoples' relationship with cooking. He says the average consumer relies on takeout more often and doesn't want a long grocery list or a meal that takes hours to prepare. Oliver says one of the main goals of writing this book was to make fresh, home-cooked meals approachable and attainable for people of all class statuses. "Technology in life is changing our lifestyles. And of course, the food industry wants to fix everything for you. And what happens when that happens is people forget how to cook. And we know that when people forget how to cook, they're not so well," Oliver says. "For me, cooking isn't just about joy and the gorgeousness of serving people that you love, but also it's kind of political and it's about our kids and it's about our futures."

SubQuestion No : 19

Q.19 What is the tone of the passage?

Ans

✗ 1. Sadistic

✗ 2. Humourous

✗ 3. Sad

✓ 4. Informative

Question ID : **4410091061984**
Option 1 ID : **4410094196373**
Option 2 ID : **4410094196371**
Option 3 ID : **4410094196372**
Option 4 ID : **4410094196370**

Comprehension:

Read the given passage and answer the questions that follow.

The book features everything, from main courses to desserts. Readers likely have the ingredients on hand, making the dishes quick to whip up even if you have no time to head to the store first. Oliver says that as times change, so does peoples' relationship with cooking. He says the average consumer relies on takeout more often and doesn't want a long grocery list or a meal that takes hours to prepare. Oliver says one of the main goals of writing this book was to make fresh, home-cooked meals approachable and attainable for people of all class statuses. "Technology in life is changing our lifestyles. And of course, the food industry wants to fix everything for you. And what happens when that happens is people forget how to cook. And we know that when people forget how to cook, they're not so well," Oliver says. "For me, cooking isn't just about joy and the gorgeousness of serving people that you love, but also it's kind of political and it's about our kids and it's about our futures."

SubQuestion No : 20

Q.20 Select the most appropriate synonym of the underlined word in the given sentence.

'....cooking isn't just about joy and the gorgeousness of serving people that you love...'

Ans

✓ 1. Beauty and delight

✗ 2. Exciting and joyful

✗ 3. Tiring and annoying

✗ 4. Sad and depressing

Question ID : **4410091061985**
Option 1 ID : **4410094196376**
Option 2 ID : **4410094196374**
Option 3 ID : **4410094196377**
Option 4 ID : **4410094196375**

Section : **Test of Hindi Language and Comprehension**

Q.1 उचित कारक चिह्न से दिए गए वाक्य का रिक्त स्थान पूर्ण करें–

मनुष्य अपने विवेक के बल पर अपने विश्वास ..... कभी कम नहीं होने देता।

Ans
✗ 1. के लिए
✗ 2. पर
✓ 3. को
✗ 4. में

Question ID : **4410091005246**
Option 1 ID : **4410093972569**
Option 2 ID : **4410093972570**
Option 3 ID : **4410093972567**
Option 4 ID : **4410093972568**

Q.2 वाक्य-विन्यास की दृष्टि से निम्न में से शुद्ध वाक्य का चयन करें---1192

Ans
✓ 1. जबलपुर की किसी साहित्यिक संस्था ने निराला जी को जबलपुर आमंत्रित किया था।
✗ 2. जबलपुर की किसी साहित्यिक संस्था ने निराला जी को जबलपुर किया था आमंत्रित।
✗ 3. जबलपुर की साहित्यिक किसी संस्था ने निराला जी को जबलपुर आमंत्रित किया था।
✗ 4. किसी साहित्यिक संस्था ने जबलपुर की निराला जी को जबलपुर आमंत्रित था किया।

Question ID : **4410091052026**
Option 1 ID : **4410094157173**
Option 2 ID : **4410094157175**
Option 3 ID : **4410094157174**
Option 4 ID : **4410094157176**

Q.3 निम्नलिखित वाक्यांश हेतु सार्थक शब्द का चुनाव करें।
मोक्ष की इच्छा रखने वाला1132

Ans
✓ 1. मुमुक्षु
✗ 2. पिपासु
✗ 3. युयुत्सु
✗ 4. मुरमुट

Question ID : **4410091051966**
Option 1 ID : **4410094156933**
Option 2 ID : **4410094156936**
Option 3 ID : **4410094156935**
Option 4 ID : **4410094156934**

Q.4 निम्नलिखित विकल्पों में अनेकार्थक शब्दों की दृष्टि से एक विकल्प अनुपयुक्त है, उसका चयन कीजिए :211

Ans
✗ 1. चक्र = पहिया, वृत्त, घेरा
✗ 2. चपला = लक्ष्मी, बिजली, स्त्री
✗ 3. खग = पक्षी, गन्धर्व, सूर्य
✓ 4. चपल = चंचल, पारा, जीभ

Question ID : **4410091054757**
Option 1 ID : **4410094168038**
Option 2 ID : **4410094168040**
Option 3 ID : **4410094168039**
Option 4 ID : **4410094168037**

QuickSarkari.com | WhatsApp Channel | Telegram: t.me/quick_sarkari

Q.5 'मानव' का पर्यायवाची शब्द है –291

Ans
✗ 1. महामानव
✗ 2. आदिमानव
✗ 3. महात्मा
✓ 4. मनुष्य

Question ID : **4410091054837**
Option 1 ID : **4410094168360**
Option 2 ID : **4410094168358**
Option 3 ID : **4410094168359**
Option 4 ID : **4410094168357**

Q.6 निम्नलिखित वाक्य की पूर्ति उचित कारक शब्द से करें।
सुदेश मुकेश _____ गाड़ी दे रहा है।

Ans
✗ 1. से
✗ 2. के
✗ 3. ओह!
✓ 4. को

Question ID : **4410091005192**
Option 1 ID : **4410093972353**
Option 2 ID : **4410093972352**
Option 3 ID : **4410093972354**
Option 4 ID : **4410093972351**

Q.7 दिए गये विकल्पों में 'कदली ' का अर्थ है-143

Ans
✗ 1. जामुन
✗ 2. कचनार
✓ 3. केला
✗ 4. कदम्ब

Question ID : **4410091054689**
Option 1 ID : **4410094167766**
Option 2 ID : **4410094167768**
Option 3 ID : **4410094167765**
Option 4 ID : **4410094167767**

Q.8 उचित कारक चिह्न से दिए गए वाक्य का रिक्त स्थान पूर्ण करें–

विश्व की उन्नति एवं प्रगति ..... आधार मनुष्य का पुरुषार्थ है भाग्य नहीं।

Ans
✗ 1. में
✗ 2. को
✗ 3. पर
✓ 4. का

Question ID : **4410091005252**
Option 1 ID : **4410093972594**
Option 2 ID : **4410093972593**
Option 3 ID : **4410093972592**
Option 4 ID : **4410093972591**

QuickSarkari.com | WhatsApp Channel | Telegram: t.me/quick_sarkari

Q.9 निम्नलिखित वाक्य में त्रुटि की पहचान कर शुद्ध वाक्य का चयन करें।
अंकित ने बीचे में बोलकर सब गूड़-गोबर कर दिया।

Ans
✔ 1. अंकित ने बीच में बोलकर सब गुड़-गोबर कर दिया।
✘ 2. अंकित ने बीच में बोलकर सब गुड़-गोबर कर दिए।
✘ 3. अंकित ने बीच में बोलकर सबे गुड़-गोबर कर दिया।
✘ 4. अंकित नी बीच में बोल के सब गुड़-गोबर कर दिए।

Question ID : **4410091058555**
Option 1 ID : **4410094183229**
Option 2 ID : **4410094183231**
Option 3 ID : **4410094183232**
Option 4 ID : **4410094183230**

Q.10 निम्नलिखित वाक्य को क्रम में लिखें।
1 हैं या फिर
2 आप रह सकते
3 आपके मित्र
4 या तो यहाँ1137

Ans
✘ 1. 2341
✘ 2. 1234
✘ 3. 3412
✔ 4. 4213

Question ID : **4410091051971**
Option 1 ID : **4410094156954**
Option 2 ID : **4410094156955**
Option 3 ID : **4410094156956**
Option 4 ID : **4410094156953**

Q.11 दिये गये विकल्पों में ' जनेऊ ' का तत्सम शब्द है -150

Ans
✔ 1. यज्ञोपवीत
✘ 2. माला
✘ 3. सुमिरनी
✘ 4. कंठी

Question ID : **4410091054696**
Option 1 ID : **4410094167795**
Option 2 ID : **4410094167794**
Option 3 ID : **4410094167796**
Option 4 ID : **4410094167793**

QuickSarkari.com | WhatsApp Channel | Telegram: t.me/quick_sarkari

Q.12 निम्नलिखित विकल्पों में रेखांकित शब्द के लिए सही वर्तनी वाला शब्द है-
राजा के दरबार में एक <u>विदुशक</u> था जो सबको सदा हँसाया करता था 285

Ans
✗ 1. वीदुशक
✓ 2. विदूषक
✗ 3. विदुषक
✗ 4. विदूशक

Question ID : **4410091054831**
Option 1 ID : **4410094168333**
Option 2 ID : **4410094168334**
Option 3 ID : **4410094168335**
Option 4 ID : **4410094168336**

Q.13 'गिरगिट की तरह रंग बदलना' मुहावरे का सही अर्थ है -106

Ans
✗ 1. बात बदलना
✗ 2. बात दुहराना
✓ 3. कभी एक बात पर नहीं टिकना
✗ 4. बात छुपाना

Question ID : **4410091054652**
Option 1 ID : **4410094167618**
Option 2 ID : **4410094167619**
Option 3 ID : **4410094167617**
Option 4 ID : **4410094167620**

Q.14 निम्नलिखित वाक्य में सही मुहावरे का प्रयोग कीजिए-
विपिन को समझाना बेकार है, वह तो _____ है।

Ans
✗ 1. ईद का चाँद
✓ 2. औंधी खोपड़ी
✗ 3. आस्तीन का साँप
✗ 4. आँखों का तारा

Question ID : **4410091054734**
Option 1 ID : **4410094167948**
Option 2 ID : **4410094167945**
Option 3 ID : **4410094167947**
Option 4 ID : **4410094167946**

Q.15 नीचे दिए वाक्यांश के लिए एक शब्द दिए गए विकल्पों में से चुनें-
जिसे विश्वास या दिलासा दिलाया गया हो

Ans
✓ 1. आश्वस्त
✗ 2. आशातीत
✗ 3. विश्वसनीय
✗ 4. विश्वस्त

Question ID : **4410091051172**
Option 1 ID : **4410094153759**
Option 2 ID : **4410094153760**
Option 3 ID : **4410094153757**
Option 4 ID : **4410094153758**

QuickSarkari.com | WhatsApp Channel | Telegram: t.me/quick_sarkari

Comprehension:

दिए गए गद्यांश के आधार पर निम्नांकित प्रश्नों के उत्तर दीजिए-
आचरण का विकास जीवन का परमोद्देश्य है। आचरण के विकास के लिए नाना प्रकार की सामग्रियों का, जो संसार-संभूत शारीरिक, प्राकृतिक, मानसिक और आध्यात्मिक जीवन में वर्तमान हैं, उन सबकी (सबका) क्या एक पुरुष और क्या एक जाति के आचरण के विकास के साधनों के संबंध में विचार करना होगा। आचरण के विकास के लिए जितने कर्म हैं उन सबको आचरण के संघटनकर्ता धर्म के अंग मानना पड़ेगा। चाहे कोई कितना ही बड़ा महात्मा क्यों न हो, वह निश्चयपूर्वक यह नहीं कह सकता कि यों ही करो, और किसी तरह नहीं। आचरण की सभ्यता की प्राप्ति के लिए वह सब को एक पथ नहीं बता सकता। आचरणशील महात्मा स्वयं भी किसी अन्य की बनायी हुई सड़क से नहीं आया, उसने अपनी सड़क स्वयं ही बनायी थी। इसी से उसके बनाए हुए रास्ते पर चलकर हम भी अपने आचरण को आदर्श के ढाँचे में नहीं ढाल सकते। हमें अपना रास्ता अपने जीवन की कुदाली की एक-एक चोट से रात-दिन बनाना पड़ेगा और उसी पर चलना भी पड़ेगा। हर किसी को अपने देश-कालानुसार रामप्राप्ति के लिए अपनी नैया आप ही बनानी पड़ेगी और आप ही चलानी भी पड़ेगी।

1670

SubQuestion No : 16

Q.16 लेखक के अनुसार जीवन का परमोद्देश्य क्या है?

Ans
✗ 1. आचरण का उपकार
✓ 2. आचरण का विकास
✗ 3. आचरण का अर्थ
✗ 4. आचरण का कार्य

Question ID : **4410091066542**
Option 1 ID : **4410094211720**
Option 2 ID : **4410094211719**
Option 3 ID : **4410094211722**
Option 4 ID : **4410094211721**

Comprehension:

दिए गए गद्यांश के आधार पर निम्नांकित प्रश्नों के उत्तर दीजिए-
आचरण का विकास जीवन का परमोद्देश्य है। आचरण के विकास के लिए नाना प्रकार की सामग्रियों का, जो संसार-संभूत शारीरिक, प्राकृतिक, मानसिक और आध्यात्मिक जीवन में वर्तमान हैं, उन सबकी (सबका) क्या एक पुरुष और क्या एक जाति के आचरण के विकास के साधनों के संबंध में विचार करना होगा। आचरण के विकास के लिए जितने कर्म हैं उन सबको आचरण के संघटनकर्ता धर्म के अंग मानना पड़ेगा। चाहे कोई कितना ही बड़ा महात्मा क्यों न हो, वह निश्चयपूर्वक यह नहीं कह सकता कि यों ही करो, और किसी तरह नहीं। आचरण की सभ्यता की प्राप्ति के लिए वह सब को एक पथ नहीं बता सकता। आचरणशील महात्मा स्वयं भी किसी अन्य की बनायी हुई सड़क से नहीं आया, उसने अपनी सड़क स्वयं ही बनायी थी। इसी से उसके बनाए हुए रास्ते पर चलकर हम भी अपने आचरण को आदर्श के ढाँचे में नहीं ढाल सकते। हमें अपना रास्ता अपने जीवन की कुदाली की एक-एक चोट से रात-दिन बनाना पड़ेगा और उसी पर चलना भी पड़ेगा। हर किसी को अपने देश-कालानुसार रामप्राप्ति के लिए अपनी नैया आप ही बनानी पड़ेगी और आप ही चलानी भी पड़ेगी।

1670

SubQuestion No : 17

Q.17 लेखक के अनुसार आचरण की सभ्यता की प्राप्ति के लिए उचित मार्ग क्या है?

Ans
✓ 1. अपना मार्ग स्वयं बनाना
✗ 2. संस्कृति के अनुसार व्यवहार करना
✗ 3. महात्मा द्वारा निर्मित मार्ग पर चलना
✗ 4. गुरु के आदर्शों पर चलना

Question ID : **4410091066543**
Option 1 ID : **4410094211723**
Option 2 ID : **4410094211726**
Option 3 ID : **4410094211725**
Option 4 ID : **4410094211724**

Comprehension:

दिए गए गद्यांश के आधार पर निम्नांकित प्रश्नों के उत्तर दीजिए-
आचरण का विकास जीवन का परमोद्देश्य है। आचरण के विकास के लिए नाना प्रकार की सामग्रियों का, जो संसार-संभूत शारीरिक, प्राकृतिक, मानसिक और आध्यात्मिक जीवन में वर्तमान हैं, उन सबकी (सबका) क्या एक पुरुष और क्या एक जाति के आचरण के विकास के साधनों के संबंध में विचार करना होगा। आचरण के विकास के लिए जितने कर्म हैं उन सबको आचरण के संघटनकर्ता धर्म के अंग मानना पड़ेगा। चाहे कोई कितना ही बड़ा महात्मा क्यों न हो, वह निश्चयपूर्वक यह नहीं कह सकता कि यों ही करो, और किसी तरह नहीं। आचरण की सभ्यता की प्राप्ति के लिए वह सब को एक पथ नहीं बता सकता। आचरणशील महात्मा स्वयं भी किसी अन्य की बनायी हुई सड़क से नहीं आया, उसने अपनी सड़क स्वयं ही बनायी थी। इसी से उसके बनाए हुए रास्ते पर चलकर हम भी अपने आचरण को आदर्श के ढाँचे में नहीं ढाल सकते। हमें अपना रास्ता अपने जीवन की कुदाली की एक-एक चोट से रात-दिन बनाना पड़ेगा और उसी पर चलना भी पड़ेगा। हर किसी को अपने देश-कालानुसार रामप्राप्ति के लिए अपनी नैया आप ही बनानी पड़ेगी और आप ही चलानी भी पड़ेगी।

1670

SubQuestion No : 18

Q.18 उपरोक्त गद्यांश के आधार पर <u>आचरण</u> शब्द का पर्यायवाची शब्द पहचानें।1673

Ans

✗ 1. गुरु मार्ग

✓ 2. व्यवहार

✗ 3. गृहकार्य

✗ 4. परिवार

Question ID : **4410091066544**
Option 1 ID : **4410094211730**
Option 2 ID : **4410094211727**
Option 3 ID : **4410094211729**
Option 4 ID : **4410094211728**

Comprehension:

दिए गए गद्यांश के आधार पर निम्नांकित प्रश्नों के उत्तर दीजिए-
आचरण का विकास जीवन का परमोद्देश्य है। आचरण के विकास के लिए नाना प्रकार की सामग्रियों का, जो संसार-संभूत शारीरिक, प्राकृतिक, मानसिक और आध्यात्मिक जीवन में वर्तमान हैं, उन सबकी (सबका) क्या एक पुरुष और क्या एक जाति के आचरण के विकास के साधनों के संबंध में विचार करना होगा। आचरण के विकास के लिए जितने कर्म हैं उन सबको आचरण के संघटनकर्ता धर्म के अंग मानना पड़ेगा। चाहे कोई कितना ही बड़ा महात्मा क्यों न हो, वह निश्चयपूर्वक यह नहीं कह सकता कि यों ही करो, और किसी तरह नहीं। आचरण की सभ्यता की प्राप्ति के लिए वह सब को एक पथ नहीं बता सकता। आचरणशील महात्मा स्वयं भी किसी अन्य की बनायी हुई सड़क से नहीं आया, उसने अपनी सड़क स्वयं ही बनायी थी। इसी से उसके बनाए हुए रास्ते पर चलकर हम भी अपने आचरण को आदर्श के ढाँचे में नहीं ढाल सकते। हमें अपना रास्ता अपने जीवन की कुदाली की एक-एक चोट से रात-दिन बनाना पड़ेगा और उसी पर चलना भी पड़ेगा। हर किसी को अपने देश-कालानुसार रामप्राप्ति के लिए अपनी नैया आप ही बनानी पड़ेगी और आप ही चलानी भी पड़ेगी।

1670

SubQuestion No : 19

Q.19 उपरोक्त गद्यांश के आधार पर <u>महात्मा</u> शब्द का विलोम शब्द पहचानें।

Ans

✗ 1. मनीषी

✓ 2. दुरात्मा

✗ 3. मंत्र दृष्टा

✗ 4. मुनि

Question ID : **4410091066545**
Option 1 ID : **4410094211732**
Option 2 ID : **4410094211731**
Option 3 ID : **4410094211734**
Option 4 ID : **4410094211733**

Comprehension:

दिए गए गद्यांश के आधार पर निम्नांकित प्रश्नों के उत्तर दीजिए-

आचरण का विकास जीवन का परमोद्देश्य है। आचरण के विकास के लिए नाना प्रकार की सामग्रियों का, जो संसार-संभूत शारीरिक, प्राकृतिक, मानसिक और आध्यात्मिक जीवन में वर्तमान हैं, उन सबकी (सबका) क्या एक पुरुष और क्या एक जाति के आचरण के विकास के साधनों के संबंध में विचार करना होगा। आचरण के विकास के लिए जितने कर्म हैं उन सबको आचरण के संघटनकर्ता धर्म के अंग मानना पड़ेगा। चाहे कोई कितना ही बड़ा महात्मा क्यों न हो, वह निश्चयपूर्वक यह नहीं कह सकता कि यों ही करो, और किसी तरह नहीं। आचरण की सभ्यता की प्राप्ति के लिए वह सब को एक पथ नहीं बता सकता। आचरणशील महात्मा स्वयं भी किसी अन्य की बनायी हुई सड़क से नहीं आया, उसने अपनी सड़क स्वयं ही बनायी थी। इसी से उसके बनाए हुए रास्ते पर चलकर हम भी अपने आचरण को आदर्श के ढाँचे में नहीं ढाल सकते। हमें अपना रास्ता अपने जीवन की कुदाली की एक-एक चोट से रात-दिन बनाना पड़ेगा और उसी पर चलना भी पड़ेगा। हर किसी को अपने देश-कालानुसार रामप्राप्ति के लिए अपनी नैया आप ही बनानी पड़ेगी और आप ही चलानी भी पड़ेगी।

1670

SubQuestion No : 20

Q.20 उपरोक्त गद्यांश के आधार संघटनकर्ता शब्द का उचित शब्दार्थ बताएं।

Ans

✗ 1. चिकित्सा सुविधा प्रदान करने वाला व्यक्ति

✗ 2. पैसे एकत्रित करने वाला व्यक्ति

✗ 3. स्वतन्त्रता प्राप्ति की आशा रखने वाला व्यक्ति

✓ 4. लोगों/शक्तियों को एकत्रित करने वाला व्यक्ति

Question ID : **4410091066546**
Option 1 ID : **4410094211737**
Option 2 ID : **4410094211736**
Option 3 ID : **4410094211738**
Option 4 ID : **4410094211735**

Section : **Discipline1**

Q.1 What is the purpose of the evaluation phase in the creative process?

Ans

✓ 1. To analyse and refine ideas after insight has occurred

✗ 2. To generate new material quickly

✗ 3. To record external sensory impressions

✗ 4. To begin sketching the final artwork

Question ID : **4410091037829**
Option 1 ID : **4410094101871**
Option 2 ID : **4410094101872**
Option 3 ID : **4410094101870**
Option 4 ID : **4410094101873**

Q.2 Which visual elements were used as a means of communication and emotional expression in prehistoric cave paintings dating back to 8000 BC?

Ans

✗ 1. Texture

✓ 2. Line

✗ 3. Dot

✗ 4. Space

Question ID : **4410091024825**
Option 1 ID : **4410094050958**
Option 2 ID : **4410094050956**
Option 3 ID : **4410094050955**
Option 4 ID : **4410094050957**

QuickSarkari.com | WhatsApp Channel | Telegram: t.me/quick_sarkari

Q.3 What does the term rhythm refer to in a visual composition or figure?

Ans
✗ 1. Distraction
✗ 2. Illusion
✓ 3. Bond of vision
✗ 4. Restlessness

Question ID : **4410091024951**
Option 1 ID : **4410094051464**
Option 2 ID : **4410094051465**
Option 3 ID : **4410094051463**
Option 4 ID : **4410094051466**

Q.4 Which of the following is the main characteristic of Emphasis?

Ans
✓ 1. Give prominence to any one form
✗ 2. Prespective marking
✗ 3. Colour mixing
✗ 4. Effect of tone

Question ID : **4410091028256**
Option 1 ID : **4410094064613**
Option 2 ID : **4410094064611**
Option 3 ID : **4410094064612**
Option 4 ID : **4410094064614**

Q.5 Which painting medium allows for the greatest flexibility in reworking the surface due to its slow drying time and blending properties?

Ans
✗ 1. Watercolour
✓ 2. Oil
✗ 3. Tempera
✗ 4. Acrylic

Question ID : **4410091037595**
Option 1 ID : **4410094100941**
Option 2 ID : **4410094100939**
Option 3 ID : **4410094100938**
Option 4 ID : **4410094100940**

Q.6 Which of the following techniques is commonly used to create tonal variation in a soft pastel drawing?

Ans
✓ 1. Finger or tool smudging
✗ 2. Wet-on-wet blending
✗ 3. Glazing with oil
✗ 4. Etching into the surface

Question ID : **4410091037617**
Option 1 ID : **4410094101028**
Option 2 ID : **4410094101026**
Option 3 ID : **4410094101027**
Option 4 ID : **4410094101029**

QuickSarkari.com | WhatsApp Channel | Telegram: t.me/quick_sarkari

Q.7 Which type of surface is NOT considered suitable for direct application of acrylic colours?

Ans
✗ 1. Pre-primed Canvas
✗ 2. Canvas Paper
✗ 3. Pre-Primed Gesso Panels
✓ 4. Glazed Ceramic

Question ID : **4410091028288**
Option 1 ID : **4410094064742**
Option 2 ID : **4410094064745**
Option 3 ID : **4410094064744**
Option 4 ID : **4410094064743**

Q.8 By what name is the Character of a surface in a painting called?

Ans
✓ 1. Texture
✗ 2. Pigment
✗ 3. Value
✗ 4. Proportion

Question ID : **4410091028244**
Option 1 ID : **4410094064570**
Option 2 ID : **4410094064567**
Option 3 ID : **4410094064569**
Option 4 ID : **4410094064568**

Q.9 Which types of lines are most commonly associated with distance, calmness, peace, balance, stability and persistence in visual art?

Ans
✗ 1. Diagonal line
✓ 2. Horizontal line
✗ 3. Vertical line
✗ 4. Curved line

Question ID : **4410091024812**
Option 1 ID : **4410094050905**
Option 2 ID : **4410094050906**
Option 3 ID : **4410094050903**
Option 4 ID : **4410094050904**

Q.10 What is the first step in the Creative art process?

Ans
✗ 1. Execution
✓ 2. Perception
✗ 3. Presentation
✗ 4. Critique

Question ID : **4410091028290**
Option 1 ID : **4410094064758**
Option 2 ID : **4410094064759**
Option 3 ID : **4410094064761**
Option 4 ID : **4410094064760**

QuickSarkari.com | WhatsApp Channel | Telegram: t.me/quick_sarkari

Q.11 What is Linear perspective used to show in a picture?

Ans
✗ 1. To highlight colours
✗ 2. Textural surface
✗ 3. To create emotional impact
✓ 4. Depth and distance

Question ID : **4410091028258**
Option 1 ID : **4410094064628**
Option 2 ID : **4410094064630**
Option 3 ID : **4410094064627**
Option 4 ID : **4410094064629**

Q.12 In art, how many basic elements are considered a part of composition?

Ans
✓ 1. 7
✗ 2. 3
✗ 3. 6
✗ 4. 5

Question ID : **4410091024972**
Option 1 ID : **4410094051548**
Option 2 ID : **4410094051547**
Option 3 ID : **4410094051550**
Option 4 ID : **4410094051549**

Q.13 What type of sentiment does the horizontal line represent?

Ans
✓ 1. Calmness
✗ 2. Insecurity
✗ 3. Disturbance
✗ 4. Distraction

Question ID : **4410091028239**
Option 1 ID : **4410094064549**
Option 2 ID : **4410094064548**
Option 3 ID : **4410094064550**
Option 4 ID : **4410094064547**

Q.14 Unity in a painting can be enhanced by:

Ans
✗ 1. using random placement of objects
✗ 2. varying textures in unrelated directions
✗ 3. using several contrasting focal points
✓ 4. repeating visual elements such as shapes, colours or lines

Question ID : **4410091037505**
Option 1 ID : **4410094100589**
Option 2 ID : **4410094100587**
Option 3 ID : **4410094100586**
Option 4 ID : **4410094100588**

QuickSarkari.com | WhatsApp Channel | Telegram: t.me/quick_sarkari

Q.15 Which of the following is a characteristic of water colour technique?

Ans
✗ 1. Rugged
✗ 2. Relief
✓ 3. Transparent
✗ 4. Intaglio

Question ID : **4410091028275**
Option 1 ID : **4410094064697**
Option 2 ID : **4410094064695**
Option 3 ID : **4410094064696**
Option 4 ID : **4410094064694**

Q.16 Which of the following properties best distinguishes acrylic paint from both oil and tempera?

Ans
✓ 1. Fast drying and water solubility
✗ 2. Slow drying and smooth blending
✗ 3. Opacity and high gloss
✗ 4. Exclusively used on wooden panels

Question ID : **4410091037609**
Option 1 ID : **4410094100996**
Option 2 ID : **4410094100994**
Option 3 ID : **4410094100995**
Option 4 ID : **4410094100997**

Q.17 Select the traditional technique employed in creating Pahari miniature paintings.

Ans
✓ 1. Tempera
✗ 2. Oil
✗ 3. Acrylic
✗ 4. Pastel

Question ID : **4410091025118**
Option 1 ID : **4410094052126**
Option 2 ID : **4410094052123**
Option 3 ID : **4410094052125**
Option 4 ID : **4410094052124**

Q.18 Who among the following is a sound artist?

Ans
✓ 1. Janet Cardiff
✗ 2. Manet
✗ 3. Monet
✗ 4. Picasso

Question ID : **4410091025198**
Option 1 ID : **4410094052435**
Option 2 ID : **4410094052437**
Option 3 ID : **4410094052436**
Option 4 ID : **4410094052438**

QuickSarkari.com | WhatsApp Channel | Telegram: t.me/quick_sarkari

Q.19 Which of the following groupings are the 'tertiary' colours?

Ans
✗ 1. Yellow-blue, blue-red, red-yellow
✗ 2. Red-violet, green-orange, blue-red
✗ 3. Yellow, red, blue
✓ 4. Red-violet, yellow-orange, yellow-green, blue-green, blue-violet

Question ID : **4410091027651**
Option 1 ID : **4410094062138**
Option 2 ID : **4410094062136**
Option 3 ID : **4410094062135**
Option 4 ID : **4410094062137**

Q.20 Which of the following would most weaken the impact of a poster designed for a social awareness campaign?

Ans
✗ 1. Emotional visual content
✗ 2. Clear call to action
✓ 3. Overuse of text and small fonts
✗ 4. Simplified infographic layout

Question ID : **4410091037971**
Option 1 ID : **4410094102427**
Option 2 ID : **4410094102425**
Option 3 ID : **4410094102426**
Option 4 ID : **4410094102428**

Section : **Discipline2**

Q.1 Which of the following software is commonly used for designing books?

Ans
✗ 1. InPage
✓ 2. InDesign
✗ 3. CorelDRAW
✗ 4. Excel

Question ID : **4410091025580**
Option 1 ID : **4410094053956**
Option 2 ID : **4410094053958**
Option 3 ID : **4410094053955**
Option 4 ID : **4410094053957**

Q.2 Which site gives the earliest evidence of agricultural field patterns through furrow marks?

Ans
✗ 1. Lothal
✗ 2. Saspal
✓ 3. Kalibangan
✗ 4. Chanhudaro

Question ID : **4410091067329**
Option 1 ID : **4410094214797**
Option 2 ID : **4410094214799**
Option 3 ID : **4410094214798**
Option 4 ID : **4410094214796**

QuickSarkari.com | WhatsApp Channel | Telegram: t.me/quick_sarkari

Q.3 What are the memory pillars called in Madhya Pradesh among the Bhil community?

Ans
✗ 1. Stambh
✗ 2. Cheera
✗ 3. Matlok
✓ 4. Gatlas

Question ID : **4410091025788**
Option 1 ID : **4410094054752**
Option 2 ID : **4410094054750**
Option 3 ID : **4410094054749**
Option 4 ID : **4410094054751**

Q.4 Which of the following modes is most suitable for a 360° advertising campaign?

Ans
✗ 1. Only print media
✗ 2. Only flyers and postcards
✗ 3. Only television commercials
✓ 4. Integration across print, digital, outdoor and social media

Question ID : **4410091037916**
Option 1 ID : **4410094102210**
Option 2 ID : **4410094102213**
Option 3 ID : **4410094102211**
Option 4 ID : **4410094102212**

Q.5 'Latpatia Sua' is a famous Madhubani painting. Who is the artist behind this artwork?

Ans
✗ 1. Sita Ramayya
✗ 2. Janki Devi
✓ 3. Mahasundari Devi
✗ 4. Madhuri Rani

Question ID : **4410091025700**
Option 1 ID : **4410094054411**
Option 2 ID : **4410094054412**
Option 3 ID : **4410094054414**
Option 4 ID : **4410094054413**

Q.6 Which folk ritual dance is closely associated with Tharu tribal culture and is visually complemented by their costume art?

Ans
✗ 1. Ghoomar Dance
✓ 2. Maghi Dance
✗ 3. Saura Dance
✗ 4. Kajari

Question ID : **4410091067133**
Option 1 ID : **4410094214016**
Option 2 ID : **4410094214018**
Option 3 ID : **4410094214019**
Option 4 ID : **4410094214017**

QuickSarkari.com | WhatsApp Channel | Telegram: t.me/quick_sarkari

Q.7 **Which stylistic feature is most commonly associated with the late works of KCS Paniker?**

Ans
✗ 1. British academic realism
✓ 2. Calligraphic symbols and abstract spiritual geometry
✗ 3. Realistic portraiture
✗ 4. Mughal miniature technique

Question ID : **4410091049804**
Option 1 ID : **4410094148292**
Option 2 ID : **4410094148290**
Option 3 ID : **4410094148289**
Option 4 ID : **4410094148291**

Q.8 **Devi Prasad Roy Chowdhury was honoured by the colonial government as the Most Exalted Member of the British Empire (MBE) in the year _____.**

Ans
✗ 1. 1936
✗ 2. 1940
✗ 3. 1938
✓ 4. 1937

Question ID : **4410091049915**
Option 1 ID : **4410094148740**
Option 2 ID : **4410094148737**
Option 3 ID : **4410094148738**
Option 4 ID : **4410094148739**

Q.9 **Ragamala paintings are primarily identified as:**

Ans
✗ 1. Company paintings
✗ 2. Warli paintings
✗ 3. Tribal paintings
✓ 4. Pahari paintings

Question ID : **4410091049878**
Option 1 ID : **4410094148582**
Option 2 ID : **4410094148584**
Option 3 ID : **4410094148583**
Option 4 ID : **4410094148581**

Q.10 **The Aipan motif 'Saraswati Chowki' is specifically drawn during which type of occasion?**

Ans
✗ 1. Wedding rituals
✓ 2. Start to child's formal education ceremony
✗ 3. Funeral rites
✗ 4. Housewarming ceremony

Question ID : **4410091029714**
Option 1 ID : **4410094070538**
Option 2 ID : **4410094070539**
Option 3 ID : **4410094070540**
Option 4 ID : **4410094070541**

QuickSarkari.com | WhatsApp Channel | Telegram: t.me/quick_sarkari

Q.11 What element is the most effective in grabbing attention in a social issue poster?

Ans
✗ 1. Small typography
✓ 2. Bold colours and compelling images
✗ 3. Long paragraph of text
✗ 4. Borderless printing

Question ID : **4410091041640**
Option 1 ID : **4410094115614**
Option 2 ID : **4410094115616**
Option 3 ID : **4410094115617**
Option 4 ID : **4410094115615**

Q.12 The term 'ready-to-wear' is derived from which French phrase?

Ans
✗ 1. Fashion di vista
✓ 2. Pret-a-porter
✗ 3. Ready to buy
✗ 4. Grab a quick

Question ID : **4410091025644**
Option 1 ID : **4410094054206**
Option 2 ID : **4410094054203**
Option 3 ID : **4410094054205**
Option 4 ID : **4410094054204**

Q.13 Which statement best describes the artistic style of Indus Valley artifacts?

Ans
✗ 1. The figures were symbolic and lacked anatomical detail.
✓ 2. The delineation of human and animal figures was highly realistic.
✗ 3. Only religious symbols were depicted, without any human or animal forms.
✗ 4. The art was abstract, focusing only on geometric patterns.

Question ID : **4410091049579**
Option 1 ID : **4410094147410**
Option 2 ID : **4410094147411**
Option 3 ID : **4410094147413**
Option 4 ID : **4410094147412**

Q.14 The art of adjusting printed material through Letters is called:

Ans
✗ 1. Iconography
✓ 2. Typography
✗ 3. Grography
✗ 4. Hydrography

Question ID : **4410091028341**
Option 1 ID : **4410094064983**
Option 2 ID : **4410094064985**
Option 3 ID : **4410094064984**
Option 4 ID : **4410094064982**

Q.15 Which element of package design most directly influences consumer buying decisions?

Ans
✔ 1. Visual appeal and branding
✘ 2. The number of folds
✘ 3. Package durability
✘ 4. The size of the barcode

Question ID : **4410091038051**
Option 1 ID : **4410094102748**
Option 2 ID : **4410094102750**
Option 3 ID : **4410094102747**
Option 4 ID : **4410094102749**

Q.16 What does CMYK stand for in print graphic design?

Ans
✘ 1. Color, Mix, Yellow, Key
✘ 2. Cyan, Mint, Yellow, Khaki
✘ 3. Color, Mode, Yellow, Key
✔ 4. Cyan, Magenta, Yellow, Key

Question ID : **4410091048502**
Option 1 ID : **4410094143101**
Option 2 ID : **4410094143102**
Option 3 ID : **4410094143103**
Option 4 ID : **4410094143100**

Q.17 Who among the following is famous as a Warli artist?

Ans
✔ 1. Jivya Soma Mashe
✘ 2. Radha Sumati
✘ 3. Meera Vasudevan
✘ 4. Sujata

Question ID : **4410091025774**
Option 1 ID : **4410094054696**
Option 2 ID : **4410094054693**
Option 3 ID : **4410094054694**
Option 4 ID : **4410094054695**

Q.18 A logo is best described as:

Ans
✘ 1. a short promotional phrase
✘ 2. a sentence used for branding
✔ 3. a combination of image and text representing a brand
✘ 4. a company's handwritten signature for advertising

Question ID : **4410091025500**
Option 1 ID : **4410094053644**
Option 2 ID : **4410094053643**
Option 3 ID : **4410094053645**
Option 4 ID : **4410094053646**

QuickSarkari.com | WhatsApp Channel | Telegram: t.me/quick_sarkari

Q.19 Which painting in the Ajanta Caves is considered a masterpiece of Indian art?

Ans
✔ 1. Padmapani Bodhisattva
✘ 2. Mara Vijay
✘ 3. Jataka queen
✘ 4. Blue Pond

Question ID : **4410091025838**
Option 1 ID : **4410094054940**
Option 2 ID : **4410094054937**
Option 3 ID : **4410094054938**
Option 4 ID : **4410094054939**

Q.20 Kalighat is a form of painting produced in the 19th century by artists in the market place of _____.

Ans
✘ 1. Kochi
✘ 2. Sarnath
✘ 3. Sanchi
✔ 4. Calcutta

Question ID : **4410091049781**
Option 1 ID : **4410094148203**
Option 2 ID : **4410094148201**
Option 3 ID : **4410094148202**
Option 4 ID : **4410094148204**

Section : **Discipline3**

Q.1 Which famous artwork series was created by K C S Paniker, inspired by local calligraphy and metaphysical themes?

Ans
✔ 1. Words and Symbols
✘ 2. Indian Renaissance
✘ 3. Rhythm of Nature
✘ 4. The Divine Forms

Question ID : **4410091025934**
Option 1 ID : **4410094055309**
Option 2 ID : **4410094055311**
Option 3 ID : **4410094055308**
Option 4 ID : **4410094055310**

QuickSarkari.com | WhatsApp Channel | Telegram: t.me/quick_sarkari

Q.2 Which of the following refers to a three-dimensional shape that has thickness and depth?

Ans
✗ 1. Line
✗ 2. Shape
✓ 3. Form
✗ 4. Colour

Question ID : **4410091026423**
Option 1 ID : **4410094057257**
Option 2 ID : **4410094057255**
Option 3 ID : **4410094057256**
Option 4 ID : **4410094057258**

Q.3 Which type of visual art emphasises ideas over aesthetic and often uses mixed media or installations?

Ans
✗ 1. Abstract Expressionism
✗ 2. Romanticism
✓ 3. Conceptual Art
✗ 4. Realism

Question ID : **4410091049965**
Option 1 ID : **4410094148933**
Option 2 ID : **4410094148935**
Option 3 ID : **4410094148934**
Option 4 ID : **4410094148936**

Q.4 Who among the following stated that 'what is true, what is beautiful, what is beneficial—that is art'?

Ans
✗ 1. Jalota
✗ 2. Kalidasa
✓ 3. Rabindranath Tagore
✗ 4. Bharata Muni

Question ID : **4410091026055**
Option 1 ID : **4410094055793**
Option 2 ID : **4410094055794**
Option 3 ID : **4410094055795**
Option 4 ID : **4410094055792**

Q.5 Which is the most basic type of linear perspective?

Ans
✗ 1. Three-point perspective
✗ 2. Two-point perspective
✗ 3. Atmospheric perspective
✓ 4. Single-point perspective

Question ID : **4410091068142**
Option 1 ID : **4410094218081**
Option 2 ID : **4410094218082**
Option 3 ID : **4410094218079**
Option 4 ID : **4410094218080**

QuickSarkari.com | WhatsApp Channel | Telegram: t.me/quick_sarkari

Q.6 In Indian aesthetic theory, the term "Bhava" refers to:

Ans ✗ 1. a religious practice involving chanting

✓ 2. the emotional state or sentiment expressed in the artwork

✗ 3. the dominant mood of a poem

✗ 4. the material used in a sculpture

Question ID : **4410091049948**
Option 1 ID : **4410094148860**
Option 2 ID : **4410094148859**
Option 3 ID : **4410094148858**
Option 4 ID : **4410094148857**

Q.7 Which of the following combinations best represents the three primary branches of Visual Art in formal academic classification?

Ans ✗ 1. Painting, Theatre, Music

✓ 2. Painting, Sculpture, Architecture

✗ 3. Cinema, Literature, Pottery

✗ 4. Sculpture, Dance, Photography

Question ID : **4410091054293**
Option 1 ID : **4410094166237**
Option 2 ID : **4410094166239**
Option 3 ID : **4410094166240**
Option 4 ID : **4410094166238**

Q.8 Which of the following compositions best demonstrates asymmetrical balance in visual art?

Ans ✗ 1. A grid-based layout with equally spaced elements

✗ 2. A radial layout with elements rotating from a central point

✗ 3. A symmetrical mandala with mirrored patterns on both sides

✓ 4. A landscape where large visual mass on one side is counterbalanced by colour and texture on the other

Question ID : **4410091058791**
Option 1 ID : **4410094184168**
Option 2 ID : **4410094184167**
Option 3 ID : **4410094184165**
Option 4 ID : **4410094184166**

Q.9 Historian Ananda Coomaraswamy was born in _____.

Ans ✗ 1. America

✗ 2. Tamil Nadu

✗ 3. Paris

✓ 4. Ceylon

Question ID : **4410091050000**
Option 1 ID : **4410094149067**
Option 2 ID : **4410094149065**
Option 3 ID : **4410094149068**
Option 4 ID : **4410094149066**

Q.10 Who is regarded as the 'Pioneer of Modern Art' in India?

Ans
- ✗ 1. Rabindranath Tagore
- ✗ 2. Asit Kumar Haldar
- ✗ 3. Gopal Ghosh
- ✓ 4. Raja Ravi Varma

Question ID : **4410091025877**
Option 1 ID : **4410094055089**
Option 2 ID : **4410094055091**
Option 3 ID : **4410094055090**
Option 4 ID : **4410094055092**

Q.11 When did Artist NS Bendre receive the prestigious 'Kalidasa Award'?

Ans
- ✗ 1. 1991 AD
- ✓ 2. 1984 AD
- ✗ 3. 1955 AD
- ✗ 4. 2001 AD

Question ID : **4410091068046**
Option 1 ID : **4410094217694**
Option 2 ID : **4410094217695**
Option 3 ID : **4410094217693**
Option 4 ID : **4410094217696**

Q.12 Which of the following is NOT traditionally considered a part of Fine Arts?

Ans
- ✗ 1. Sculpture
- ✗ 2. Drawing
- ✗ 3. Painting
- ✓ 4. Engineering

Question ID : **4410091068057**
Option 1 ID : **4410094217739**
Option 2 ID : **4410094217737**
Option 3 ID : **4410094217738**
Option 4 ID : **4410094217740**

Q.13 Which of the following is a key visual characteristic of early Apabhramsa style paintings?

Ans
- ✓ 1. Elongated eyes, bold outlines, and flat composition
- ✗ 2. Fresco technique on stone walls
- ✗ 3. Naturalistic shading and perspective
- ✗ 4. Gold leaf backgrounds with 3D volume

Question ID : **4410091049624**
Option 1 ID : **4410094147591**
Option 2 ID : **4410094147592**
Option 3 ID : **4410094147590**
Option 4 ID : **4410094147593**

QuickSarkari.com | WhatsApp Channel | Telegram: t.me/quick_sarkari

Q.14 How many points are there in one Pica in Type Measurement?

Ans
✔ 1. 12
✘ 2. 15
✘ 3. 2
✘ 4. 8

Question ID : **4410091068114**
Option 1 ID : **4410094217969**
Option 2 ID : **4410094217968**
Option 3 ID : **4410094217970**
Option 4 ID : **4410094217967**

Q.15 In the context of the principles of design, which of the following refers to the patterned repetition, recurrence, and organised movement of the elements?

Ans
✘ 1. Balance
✘ 2. Contrast
✘ 3. Harmony
✔ 4. Rhythm

Question ID : **4410091058928**
Option 1 ID : **4410094184697**
Option 2 ID : **4410094184699**
Option 3 ID : **4410094184700**
Option 4 ID : **4410094184698**

Q.16 According to Aristotle, which of the following is NOT one of the six essential parts of tragedy?

Ans
✘ 1. Plot
✔ 2. Dialogue
✘ 3. Spectacle
✘ 4. Character

Question ID : **4410091026109**
Option 1 ID : **4410094056011**
Option 2 ID : **4410094056013**
Option 3 ID : **4410094056014**
Option 4 ID : **4410094056012**

Q.17 When did Rabindranath Tagore receive the Nobel Prize for Literature?

Ans
✘ 1. 1920
✘ 2. 1915
✔ 3. 1913
✘ 4. 1917

Question ID : **4410091049983**
Option 1 ID : **4410094149008**
Option 2 ID : **4410094149005**
Option 3 ID : **4410094149006**
Option 4 ID : **4410094149007**

QuickSarkari.com | WhatsApp Channel | Telegram: t.me/quick_sarkari

Q.18 Jogimara caves are located in:

Ans
✗ 1. Odisha

✗ 2. Uttar Pradesh

✗ 3. Karnataka

✓ 4. Chhattisgarh

Question ID : **4410091049828**
Option 1 ID : **4410094148387**
Option 2 ID : **4410094148386**
Option 3 ID : **4410094148388**
Option 4 ID : **4410094148385**

Q.19 Which of the following statements best highlights the key difference between commercial art and fine art?

Ans
✓ 1. Commercial art is created to promote products or services, whereas fine art is made for aesthetic and expressive purposes.

✗ 2. Fine art focuses on visual effects, while commercial art focuses only on music.

✗ 3. Fine art and commercial art are both strictly used in corporate branding.

✗ 4. Commercial art is displayed in museums, while fine art is used in advertising.

Question ID : **4410091026417**
Option 1 ID : **4410094057233**
Option 2 ID : **4410094057232**
Option 3 ID : **4410094057234**
Option 4 ID : **4410094057231**

Q.20 What does the term “plastic arts” refer to?

Ans
✗ 1. Arts that are temporary in nature

✓ 2. Arts that involve molding or shaping, like sculpture or ceramics

✗ 3. Arts made using plastic materials

✗ 4. Arts taught in schools only

Question ID : **4410091049951**
Option 1 ID : **4410094148871**
Option 2 ID : **4410094148870**
Option 3 ID : **4410094148869**
Option 4 ID : **4410094148872**

Section : **Discipline4**

QuickSarkari.com | WhatsApp Channel | Telegram: t.me/quick_sarkari

Q.1 Which Indian school of painting was influenced by Japanese wash techniques and sought to revive Indian traditional art during the colonial period?

Ans
✔ 1. Bengal School
✘ 2. Kalighat
✘ 3. Mysore School
✘ 4. Company School

Question ID : **4410091058872**
Option 1 ID : **4410094184478**
Option 2 ID : **4410094184477**
Option 3 ID : **4410094184480**
Option 4 ID : **4410094184479**

Q.2 Which of the following best describes Rashtrakuta contribution to Indian art?

Ans
✘ 1. Introduction of fresco painting
✔ 2. Mastery of rock-cut architecture with symbolic and sculptural richness
✘ 3. Invention of the wheel and pottery techniques
✘ 4. Development of Mughal miniatures

Question ID : **4410091060185**
Option 1 ID : **4410094189717**
Option 2 ID : **4410094189719**
Option 3 ID : **4410094189720**
Option 4 ID : **4410094189718**

Q.3 Phad painting, known for its scroll-like narrative structure, is traditionally associated with which theme?

Ans
✘ 1. Mughal miniature court scenes
✘ 2. Abstract nature motifs
✘ 3. Krishna's childhood only
✔ 4. Epic tales of local deities and heroic ballads

Question ID : **4410091038224**
Option 1 ID : **4410094103330**
Option 2 ID : **4410094103327**
Option 3 ID : **4410094103328**
Option 4 ID : **4410094103329**

Q.4 The Gupta period marks the beginning of which artistic phase in India?

Ans
✘ 1. Colonial realism
✘ 2. Early medieval abstraction
✘ 3. Folk art revival
✔ 4. Classical phase of sculpture

Question ID : **4410091026553**
Option 1 ID : **4410094057790**
Option 2 ID : **4410094057788**
Option 3 ID : **4410094057787**
Option 4 ID : **4410094057789**

Q.5 Which of the following art features is most closely associated with the Sunga period?

Ans
✗ 1. Buddhist cave monasteries with chaityas
✗ 2. Gandhara-style sculptures
✓ 3. Narrative reliefs on gateways and railings of stupas
✗ 4. Polished sandstone monolithic pillars

Question ID : **4410091058898**
Option 1 ID : **4410094184583**
Option 2 ID : **4410094184584**
Option 3 ID : **4410094184582**
Option 4 ID : **4410094184581**

Q.6 Jain manuscript painting flourished primarily during which period?

Ans
✗ 1. 3rd to 6th century CE
✗ 2. 7th to 10th century CE
✓ 3. 11th to 16th century CE
✗ 4. 17th to 19th century CE

Question ID : **4410091028744**
Option 1 ID : **4410094066633**
Option 2 ID : **4410094066631**
Option 3 ID : **4410094066632**
Option 4 ID : **4410094066630**

Q.7 The Gond community primarily belongs to which group?

Ans
✓ 1. Tribal or Adivasi
✗ 2. Dravidians
✗ 3. Rajputs
✗ 4. Britishers

Question ID : **4410091041756**
Option 1 ID : **4410094116079**
Option 2 ID : **4410094116078**
Option 3 ID : **4410094116080**
Option 4 ID : **4410094116081**

Q.8 The Virupaksha Temple at Pattadakal was built by which Chalukya ruler?

Ans
✗ 1. Rani Ahillya
✗ 2. Pulakesin I
✗ 3. Mangalesha
✓ 4. Rani Lokamahadevi

Question ID : **4410091029333**
Option 1 ID : **4410094068977**
Option 2 ID : **4410094068976**
Option 3 ID : **4410094068975**
Option 4 ID : **4410094068974**

QuickSarkari.com | WhatsApp Channel | Telegram: t.me/quick_sarkari

Q.9 Kailash temple of Ellora was constructed by the Rashtrakuta king:

Ans
1. Krishna III
2. Dantidurga
3. Amoghavarsha
4. Krishna I

Question ID : **4410091067118**
Option 1 ID : **4410094213958**
Option 2 ID : **4410094213959**
Option 3 ID : **4410094213957**
Option 4 ID : **4410094213956**

Q.10 Which of the following is a characteristic feature of the Mathura School of Art?

Ans
1. Hellenistic facial features
2. Absence of Buddhist iconography
3. Indigenous Indian stylistic elements with spiritual expression
4. Realistic drapery and sharp features

Question ID : **4410091028905**
Option 1 ID : **4410094067274**
Option 2 ID : **4410094067275**
Option 3 ID : **4410094067276**
Option 4 ID : **4410094067277**

Q.11 What is a distinguishing feature of the Indus Valley Civilization's artistic expression?

Ans
1. Abstract oil paintings
2. Large-scale murals
3. Cave frescoes in gold leaf
4. Seals with animal motifs and script

Question ID : **4410091058851**
Option 1 ID : **4410094184398**
Option 2 ID : **4410094184397**
Option 3 ID : **4410094184400**
Option 4 ID : **4410094184399**

Q.12 What is depicted in the initial phase of the Jaunsari Culture Painting?

Ans
1. Traditional farming scenes of the Garhwal region
2. Celebration of Holi with floral designs
3. Marriage rituals of the Rajput community
4. Jaunsari Diwali with ethnic dresses and Harul dance

Question ID : **4410091026657**
Option 1 ID : **4410094058218**
Option 2 ID : **4410094058215**
Option 3 ID : **4410094058217**
Option 4 ID : **4410094058216**

QuickSarkari.com | WhatsApp Channel | Telegram: t.me/quick_sarkari

Q.13 Which of the following floor decoration forms is traditionally practiced during Pongal in South India?

Ans
✗ 1. Rangoli
✓ 2. Kolam
✗ 3. Alpana
✗ 4. Sanjhi

Question ID : **4410091026615**
Option 1 ID : **4410094058049**
Option 2 ID : **4410094058050**
Option 3 ID : **4410094058047**
Option 4 ID : **4410094058048**

Q.14 Which painting tradition uses layered dots and vibrant colours to depict nature, mythology, and tribal deities?

Ans
✗ 1. Bhotia
✗ 2. Warli
✓ 3. Bhil
✗ 4. Tharu

Question ID : **4410091061844**
Option 1 ID : **4410094195895**
Option 2 ID : **4410094195892**
Option 3 ID : **4410094195893**
Option 4 ID : **4410094195894**

Q.15 How many major categories are included under Fine Arts?

Ans
✓ 1. 5
✗ 2. 9
✗ 3. 8
✗ 4. 7

Question ID : **4410091026379**
Option 1 ID : **4410094057083**
Option 2 ID : **4410094057086**
Option 3 ID : **4410094057085**
Option 4 ID : **4410094057084**

Q.16 _____ is a stunning collection of clay soldiers made during the Chin Period.

Ans
✗ 1. The Clay Battalion
✗ 2. The Clay Army
✗ 3. The Terracota Battalion
✓ 4. The Terracotta Army

Question ID : **4410091067216**
Option 1 ID : **4410094214345**
Option 2 ID : **4410094214347**
Option 3 ID : **4410094214346**
Option 4 ID : **4410094214344**

QuickSarkari.com | WhatsApp Channel | Telegram: t.me/quick_sarkari

Q.17 Tanjore painting is distinct for its use of which material?

Ans
✗ 1. Tempera on bamboo
✓ 2. Gold foil and semi-precious stones
✗ 3. Water-based inks
✗ 4. Embroidery on silk

Question ID : **4410091049443**
Option 1 ID : **4410094146881**
Option 2 ID : **4410094146880**
Option 3 ID : **4410094146879**
Option 4 ID : **4410094146882**

Q.18 What type of script did the Indus Valley Civilisation use?

Ans
✗ 1. Devanagari
✗ 2. Brahmi
✓ 3. Pictographic
✗ 4. Aramaic

Question ID : **4410091028715**
Option 1 ID : **4410094066518**
Option 2 ID : **4410094066521**
Option 3 ID : **4410094066519**
Option 4 ID : **4410094066520**

Q.19 The Unified Silla period contributed significantly to which art form that later influenced East Asia?

Ans
✗ 1. Calligraphy on bamboo
✗ 2. Silk weaving
✓ 3. Stone pagodas
✗ 4. Zen ink painting

Question ID : **4410091067226**
Option 1 ID : **4410094214387**
Option 2 ID : **4410094214386**
Option 3 ID : **4410094214385**
Option 4 ID : **4410094214384**

Q.20 Which of the following is a distinctive feature of Jomon pottery?

Ans
✗ 1. Molded bronze ritual vessels
✓ 2. Coiled construction with elaborate cord-marked patterns
✗ 3. Painted terra-cotta warriors
✗ 4. Glazed porcelain with floral designs

Question ID : **4410091066616**
Option 1 ID : **4410094211974**
Option 2 ID : **4410094211972**
Option 3 ID : **4410094211973**
Option 4 ID : **4410094211971**

Section : **Discipline5**

QuickSarkari.com | WhatsApp Channel | Telegram: t.me/quick_sarkari

Q.1 **Herbert Reed was a well-known:**

Ans
✗ 1. sculptor
✗ 2. photographer
✓ 3. art writer
✗ 4. artist

Question ID : **4410091067258**
Option 1 ID : **4410094214507**
Option 2 ID : **4410094214506**
Option 3 ID : **4410094214505**
Option 4 ID : **4410094214504**

Q.2 **The chromolithograph titled 'Parsi Beauty,' derived from a painting by artist Raja Ravi Varma, was produced by which press?**

Ans
✗ 1. Mysore Press
✗ 2. Bombay Art Press
✗ 3. Bengal School Press
✓ 4. Ravi Varma Press

Question ID : **441009963238**
Option 1 ID : **4410093806297**
Option 2 ID : **4410093806296**
Option 3 ID : **4410093806294**
Option 4 ID : **4410093806295**

Q.3 **One of Satish Gujral's most famous architectural works is _____.**

Ans
✓ 1. The Belgium Embassy, New Delhi
✗ 2. Jawahar Kala Kendra, Jaipur
✗ 3. Lotus Temple, New Delhi
✗ 4. India Habitat Centre, New Delhi

Question ID : **4410091047353**
Option 1 ID : **4410094138433**
Option 2 ID : **4410094138434**
Option 3 ID : **4410094138435**
Option 4 ID : **4410094138436**

Q.4 **In Aristotle's Poetics, what is the primary purpose of tragedy in literature?**

Ans
✗ 1. To provoke emotional chaos
✗ 2. To teach moral lessons directly
✓ 3. To arouse and purge emotions of pity and fear (catharsis)
✗ 4. To entertain the audience

Question ID : **4410091066707**
Option 1 ID : **4410094212333**
Option 2 ID : **4410094212332**
Option 3 ID : **4410094212334**
Option 4 ID : **4410094212331**

QuickSarkari.com | WhatsApp Channel | Telegram: t.me/quick_sarkari

Q.5 Who among the following was NOT an impressionist ?

Ans
✔ 1. Paul Cézanne
✘ 2. Claude Monet
✘ 3. Mary Cassatt
✘ 4. Edgar Degas

Question ID : **4410091026812**
Option 1 ID : **4410094058825**
Option 2 ID : **4410094058823**
Option 3 ID : **4410094058826**
Option 4 ID : **4410094058824**

Q.6 Which of the following artistic techniques was developed during the Renaissance period?

Ans
✔ 1. Chiaroscuro
✘ 2. Wall painting
✘ 3. Oil painting
✘ 4. Fresco

Question ID : **4410091067307**
Option 1 ID : **4410094214711**
Option 2 ID : **4410094214710**
Option 3 ID : **4410094214708**
Option 4 ID : **4410094214709**

Q.7 Which of the following two architectural styles became the most prominent in Western Europe after the year 1000?

Ans
✘ 1. Italian and France
✘ 2. Christian and Byzantine
✘ 3. American and German
✔ 4. Romanesque and Gothic

Question ID : **4410091026778**
Option 1 ID : **4410094058690**
Option 2 ID : **4410094058687**
Option 3 ID : **4410094058689**
Option 4 ID : **4410094058688**

Q.8 Which of the following religions' tradition is associated with the Bagh Caves?

Ans
✘ 1. Sikhism
✔ 2. Buddhism
✘ 3. Hinduism
✘ 4. Jainism

Question ID : **4410091027008**
Option 1 ID : **4410094059602**
Option 2 ID : **4410094059603**
Option 3 ID : **4410094059601**
Option 4 ID : **4410094059600**

QuickSarkari.com | WhatsApp Channel | Telegram: t.me/quick_sarkari

Q.9 **Which artistic form flourished in Momoyama-period castles, reflecting the tastes of warrior patrons?**

Ans
✔ 1. Large-scale folding screens (byobu) with gold and landscape motifs
✘ 2. Monochrome portrait scrolls
✘ 3. Tea bowl raku ware
✘ 4. Miniature woodblock prints

Question ID : **4410091066633**
Option 1 ID : **4410094212036**
Option 2 ID : **4410094212037**
Option 3 ID : **4410094212035**
Option 4 ID : **4410094212038**

Q.10 **The famous 'Basohli Painting' - popular for its miniature art style is from:**

Ans
✔ 1. Kathua district
✘ 2. Samba district
✘ 3. Rajouri district
✘ 4. Baramulla district

Question ID : **4410091067467**
Option 1 ID : **4410094215373**
Option 2 ID : **4410094215374**
Option 3 ID : **4410094215375**
Option 4 ID : **4410094215376**

Q.11 **Who was Abhinavagupta known as?**

Ans
✘ 1. Author
✘ 2. Historian
✘ 3. Archaeologist
✔ 4. Philosopher

Question ID : **4410091026719**
Option 1 ID : **4410094058461**
Option 2 ID : **4410094058459**
Option 3 ID : **4410094058460**
Option 4 ID : **4410094058462**

Q.12 **Kant's idea of the sublime differs from the beautiful, in that:**

Ans
✔ 1. it evokes awe, even fear, by surpassing human limits
✘ 2. it triggers calm pleasure and harmony
✘ 3. it can only be appreciated through logic
✘ 4. it is confined to natural objects

Question ID : **4410091066683**
Option 1 ID : **4410094212237**
Option 2 ID : **4410094212236**
Option 3 ID : **4410094212238**
Option 4 ID : **4410094212235**

QuickSarkari.com | WhatsApp Channel | Telegram: t.me/quick_sarkari

Q.13 Amrita Sher-Gil was influenced by which European art movement during her studies in Paris?

Ans
✗ 1. Cubism
✓ 2. Post impressionism
✗ 3. Futurism
✗ 4. Surrealism

Question ID : **4410091067516**
Option 1 ID : **4410094215569**
Option 2 ID : **4410094215570**
Option 3 ID : **4410094215572**
Option 4 ID : **4410094215571**

Q.14 CG Jung's idea of the 'shadow' in art refers to:

Ans
✗ 1. negative space in composition
✓ 2. the unconscious aspects of the personality, often repressed
✗ 3. the use of lighting in visual art
✗ 4. the literal depiction of darkness

Question ID : **4410091045861**
Option 1 ID : **4410094132513**
Option 2 ID : **4410094132514**
Option 3 ID : **4410094132516**
Option 4 ID : **4410094132515**

Q.15 Which of the following statements is true about the 'Rashtrakuta dynasty' and their contributions to Indian art?

Ans
✓ 1. The Ellora Caves, known for their rock-cut architecture, were completed during the Rashtrakuta period, and the most famous among them is the Kailasa temple.
✗ 2. The Rashtrakutas were primarily patrons of Buddhist art and left behind numerous stupas and monasteries.
✗ 3. The Rashtrakutas are credited with constructing the Sun Temple at Konark, which is known for its intricate carvings.
✗ 4. The Rashtrakutas contributed significantly to Mughal miniature painting, which flourished under their rule.

Question ID : **441009963265**
Option 1 ID : **4410093806403**
Option 2 ID : **4410093806404**
Option 3 ID : **4410093806402**
Option 4 ID : **4410093806405**

Q.16 What was the printing press started by Raja Ravi Varma called?

Ans
✗ 1. Ravi Art Press
✓ 2. Ravi Varma Fine Art Lithographic Press
✗ 3. Varma's Lithographic Press
✗ 4. Bombay Fine Art Lithographic Works

Question ID : **4410091067484**
Option 1 ID : **4410094215442**
Option 2 ID : **4410094215444**
Option 3 ID : **4410094215443**
Option 4 ID : **4410094215441**

Q.17 The Rococo style is most closely associated with which of the following?

Ans
✗ 1. Revolutionary propaganda
✓ 2. Courtly elegance, pastel colours, and playful eroticism
✗ 3. Heroic realism and national identity
✗ 4. Monumental religious sculpture

Question ID : **4410091066803**
Option 1 ID : **4410094212726**
Option 2 ID : **4410094212724**
Option 3 ID : **4410094212723**
Option 4 ID : **4410094212725**

Q.18 Which artist painted the mural of 'Tripura Sundari Devi' under Kullu school?

Ans
✗ 1. Trilok Chand
✓ 2. Sajanu
✗ 3. Sahibram
✗ 4. Nand Gopal

Question ID : **4410091047244**
Option 1 ID : **4410094138008**
Option 2 ID : **4410094138005**
Option 3 ID : **4410094138006**
Option 4 ID : **4410094138007**

Q.19 Which of the following subjects is/are most commonly depicted in Kota paintings?

Ans
✗ 1. Portraits of Mughal emperors
✗ 2. Mythological themes
✗ 3. Landscapes and flora
✓ 4. Hunting scenes and royal processions

Question ID : **4410091047184**
Option 1 ID : **4410094137778**
Option 2 ID : **4410094137780**
Option 3 ID : **4410094137777**
Option 4 ID : **4410094137779**

Q.20 KCS Panikar was the principal of which major art institution?

Ans
✗ 1. College of Arts, Lucknow
✗ 2. College of Art, Delhi
✓ 3. Government College of Fine Arts, Chennai
✗ 4. Faculty of Fine Arts, MS University, Baroda

Question ID : **4410091068037**
Option 1 ID : **4410094217658**
Option 2 ID : **4410094217659**
Option 3 ID : **4410094217660**
Option 4 ID : **4410094217657**

QuickSarkari.com | WhatsApp Channel | Telegram: t.me/quick_sarkari

Quick Sarkari

Thank you for studying with QuickSarkari!

Get the latest Sarkari Naukri notifications, admit cards, results, answer keys and free previous-year papers first - follow us on WhatsApp and Telegram.

Visit www.quicksarkari.com

Join our WhatsApp Channel

https://whatsapp.com/channel/0029VaxxbrREquiPoXTWM229

Join our Telegram Channel

https://t.me/quick_sarkari

Share this PDF with your friends preparing for DSSSB exams.