Quick Sarkari

DSSSB PREVIOUS YEAR PAPER WITH ANSWER KEY

DSSSB Laboratory Attendant

5 August 2025 · Shift 1

डीएसएसएसबी प्रयोगशाला परिचारक – 5 अगस्त 2025, शिफ्ट 1 का प्रश्न पत्र, उत्तर कुंजी सहित

200	120 min	1 / −0.25	EN + HI
Questions / प्रश्न	Duration / समय	Marks per Q / अंक	Language / भाषा

Sections: General intelligence and Reasoning Ability, General Awareness, Arithmetical and Numerical Ability, English Language and Comprehension, Hindi Language and Comprehension

INSIDE THIS PDF / इस PDF में

Question Paper in English + Hindi with Answer Key (correct option marked in green) + answer table — Page 2–53
प्रश्न पत्र अंग्रेज़ी + हिंदी में, उत्तर कुंजी सहित (सही विकल्प हरे रंग में) + उत्तर तालिका

Official DSSSB Response Sheet with Answer Key (correct option ticked in green) — Page 54–136
आधिकारिक DSSSB रिस्पॉन्स शीट, उत्तर कुंजी सहित (सही विकल्प हरे टिक से)

HOW TO USE THIS PAPER / इस पेपर का उपयोग कैसे करें

1. Attempt the paper first as a timed online mock test (link below).
   पहले नीचे दिए लिंक से इसे टाइमर के साथ ऑनलाइन मॉक टेस्ट के रूप में हल करें।
2. Check your score, section-wise analysis and solutions online.
   ऑनलाइन अपना स्कोर, खंड-वार विश्लेषण और हल देखें।
3. Use this PDF for revision. Correct answers are shown in green.
   दोहराने के लिए इस PDF का उपयोग करें। सही उत्तर हरे रंग में दिए गए हैं।

Attempt this paper as a FREE online mock test

इस पेपर को फ्री ऑनलाइन मॉक टेस्ट के रूप में हल करें – टाइमर, स्कोर और हल के साथ

https://quicksarkari.com/dsssb-laboratory-attendant-05-august-2025-shift-1-mock-test/

All DSSSB Laboratory Attendant papers and mock tests: **quicksarkari.com/dsssb-mock-test/#laboratory-attendant**

Join WhatsApp Channel | Join Telegram Channel

DSSSB Laboratory Attendant – Question Paper (English + Hindi)

DSSSB प्रयोगशाला परिचारक – प्रश्न पत्र (अंग्रेज़ी + हिंदी)

Exam held on 5 August 2025, Shift 1 · 200 questions · correct answers marked ✔ in green
परीक्षा तिथि 5 अगस्त 2025, शिफ्ट 1 · 200 प्रश्न · सही उत्तर हरे रंग में ✔ से चिह्नित

> The official paper for this shift was in English. The Hindi version of each question is a translation prepared by QuickSarkari; the language-section questions are shown as asked.
> इस शिफ्ट का आधिकारिक प्रश्न पत्र अंग्रेज़ी में था। प्रत्येक प्रश्न का हिंदी संस्करण QuickSarkari द्वारा तैयार किया गया अनुवाद है; भाषा खंड के प्रश्न मूल रूप में दिए गए हैं।

General intelligence and Reasoning Ability

Q.1 In a certain code language, 'BOAT' is coded as '3519' and 'TUSK' is coded as '2458'. What is the code for 'T' in the given code language?
एक निश्चित कूट भाषा में, 'BOAT' को '3519' के रूप में और 'TUSK' को '2458' के रूप में कूटबद्ध किया जाता है। दी गई कूट भाषा में 'T' के लिए क्या कूट है?

(1) 2
(2) 4
(3) 5 ✔
(4) 9

Q.2 Refer to the following letter series and answer the question that follows. Counting to be done from left to right only.
(Left) W E R B Z X L H M Y C O P U V T K F S I D N J (Right)
How many such consonants are there each of which is immediately preceded by a vowel and also immediately followed by a vowel?
निम्नलिखित अक्षर श्रृंखला को देखें और उसके बाद दिए गए प्रश्न का उत्तर दें।
गिनती केवल बाएँ से दाएँ की जानी है।
(बाएँ) W E R B Z X L H M Y C O P U V T K F S I D N J (दाएँ)
ऐसे कितने व्यंजन हैं जिनमें से प्रत्येक के ठीक पहले एक स्वर है और ठीक बाद भी एक स्वर है?

(1) One / एक ✔
(2) Three / तीन
(3) Two / दो
(4) None / कोई नहीं

Q.3 In a European inter-governmental conference, the representatives of France, Germany, Italy, Spain, England, Austria, Denmark and the Netherlands sit around a circular table, with everyone facing the centre during the meet. Exactly three people sit between the representatives of Spain and England. The representative of Spain, who is an immediate neighbour of the representative of France, sits third from the right of the representative of Italy. Exactly three people sit between the representatives of Italy and Germany. The representative of the Netherlands has those of Austria and Germany as immediate neighbours. The representative of which of the following countries is an immediate neighbour of the representative of Italy?

एक यूरोपीय अंतर-सरकारी सम्मेलन में, फ्रांस, जर्मनी, इटली, स्पेन, इंग्लैंड, ऑस्ट्रिया, डेनमार्क और नीदरलैंड के प्रतिनिधि एक वृत्ताकार मेज के चारों ओर बैठे हैं, और बैठक के दौरान सभी का मुख केंद्र की ओर है।
स्पेन और इंग्लैंड के प्रतिनिधियों के बीच ठीक तीन व्यक्ति बैठे हैं।
स्पेन का प्रतिनिधि, जो फ्रांस के प्रतिनिधि का निकटतम पड़ोसी है, इटली के प्रतिनिधि के दाएँ से तीसरे स्थान पर बैठा है। इटली और जर्मनी के प्रतिनिधियों के बीच ठीक तीन व्यक्ति बैठे हैं। नीदरलैंड के प्रतिनिधि के निकटतम पड़ोसी ऑस्ट्रिया और जर्मनी के प्रतिनिधि हैं। निम्नलिखित में से किस देश का प्रतिनिधि इटली के प्रतिनिधि का निकटतम पड़ोसी है?

(1) Netherlands / नीदरलैंड
(2) France / फ्रांस
(3) Austria / ऑस्ट्रिया
(4) **Denmark / डेनमार्क ✔**

Q.4 In a certain code language, 'A + B' means 'A is the mother of B', 'A – B' means 'A is the brother of B', 'A % B' means 'A is the father of B' and 'A × B' means 'A is the sister of B'.
How is P related to R if 'P + S × N – Q % R'?

एक निश्चित कूट भाषा में, 'A + B' का अर्थ है 'A, B की माता है', 'A – B' का अर्थ है 'A, B का भाई है', 'A % B' का अर्थ है 'A, B का पिता है' और 'A × B' का अर्थ है 'A, B की बहन है'।
यदि 'P + S × N – Q % R' है, तो P का R से क्या संबंध है?

(1) Daughter's daughter / बेटी की बेटी
(2) **Father's mother / पिता की माता ✔**
(3) Sister's mother / बहन की माता
(4) Mother's mother / माता की माता

Q.5 All 34 students in a class are standing in a row, facing the north. Seema is 18th from the right end, while Reema is 20th from the left end. How many people are standing between Seema and Reema?

एक कक्षा के सभी 34 विद्यार्थी उत्तर की ओर मुख करके एक पंक्ति में खड़े हैं। सीमा दाएँ छोर से 18वें स्थान पर है, जबकि रीमा बाएँ छोर से 20वें स्थान पर है। सीमा और रीमा के बीच कितने व्यक्ति खड़े हैं?

(1) One / एक
(2) Four / चार
(3) **Two / दो ✔**
(4) Three / तीन

Q.6 A, B, C, D, E and F live on six different floors of the same building. The lowermost floor in the building is numbered 1, the floor above it is numbered 2, and so on till the the topmost floor is numbered 6. Exactly four people live between A and D. Only one person lives between A and C. E lives immediately above B. Only one person lives between E and F. How many people live between B and F?

A, B, C, D, E और F एक ही इमारत की छह अलग-अलग मंज़िलों पर रहते हैं। इमारत की सबसे निचली मंज़िल की संख्या 1 है, उसके ऊपर की मंज़िल की संख्या 2 है, और इसी प्रकार सबसे ऊपरी मंज़िल की संख्या 6 है। A और D के बीच ठीक चार व्यक्ति रहते हैं। A और C के बीच केवल एक व्यक्ति रहता है। E, B के ठीक ऊपर रहता है। E और F के बीच केवल एक व्यक्ति रहता है। B और F के बीच कितने व्यक्ति रहते हैं?

(1) Six / छह

(2) Five / पाँच

(3) **Two / दो ✔**

(4) Four / चार

Q.7 Each of A, B, C, D, E, F and G goes to dance on a different day of a week, starting from Monday and ending on Sunday of the same week. D goes to dance on Friday. Exactly two people go to dance between A and D. Exactly one person goes to dance between A and G. B goes to dance on the day immediately after C. F goes to dance on one of the days after E. On which day does F go to dance?

A, B, C, D, E, F और G में से प्रत्येक, एक ही सप्ताह के सोमवार से शुरू होकर रविवार तक, सप्ताह के एक अलग-अलग दिन नृत्य करने जाता है। D शुक्रवार को नृत्य करने जाता है। A और D के बीच ठीक दो व्यक्ति नृत्य करने जाते हैं। A और G के बीच ठीक एक व्यक्ति नृत्य करने जाता है। B, C के ठीक अगले दिन नृत्य करने जाता है। F, E के बाद वाले दिनों में से किसी एक दिन नृत्य करने जाता है। F किस दिन नृत्य करने जाता है?

(1) Thursday / गुरुवार

(2) Tuesday / मंगलवार

(3) Monday / सोमवार

(4) **Wednesday / बुधवार ✔**

Q.8 If each letter in the word 'AUSTRALIA' is changed to the letter immediately following it in the English alphabetical order, how many positions from the group of letters thus formed will be occupied by consonants?

यदि शब्द 'AUSTRALIA' के प्रत्येक अक्षर को अंग्रेज़ी वर्णमाला क्रम में उसके ठीक बाद आने वाले अक्षर से बदल दिया जाए, तो इस प्रकार बने अक्षर-समूह में कितने स्थानों पर व्यंजन होंगे?

(1) 7

(2) **8 ✔**

(3) 5

(4) 6

Q.9 Select the option in which the letter-clusters share the same relationship as that shared by the given pair of letter-clusters. Both the given letter clusters follow the same relationship.

DNX : GQA GMS : JPV

उस विकल्प का चयन करें जिसमें अक्षर-समूहों के बीच वही संबंध है जो दिए गए अक्षर-समूहों के युग्म के बीच है। दिए गए दोनों अक्षर-समूह एक ही संबंध का पालन करते हैं।

DNX : GQA GMS : JPV

(1) SIW : UKZ

(2) FPZ : DNW

(3) AKU : CMW

(4) **BLV : EOY ✔**

Q.10 In a certain code language, 'HUNT' is coded as '7591' and 'TEAM' is coded as '8274'. What is the code for 'T' in the given code language?

एक निश्चित कूट भाषा में, 'HUNT' को '7591' के रूप में और 'TEAM' को '8274' के रूप में कूटबद्ध किया जाता है। दी गई कूट भाषा में 'T' के लिए क्या कूट है?

(1) 1

(2) 8

(3) 2

(4) 7 ✔

Q.11 Each vowel in the word TREADING is changed to the letter following it in the English alphabetical order and each consonant is changed to the letter preceding it in the English alphabetical order. Which of the following letters will appear twice in the group of letters thus formed?

शब्द TREADING में प्रत्येक स्वर को अंग्रेज़ी वर्णमाला क्रम में उसके बाद आने वाले अक्षर से और प्रत्येक व्यंजन को अंग्रेज़ी वर्णमाला क्रम में उसके पहले आने वाले अक्षर से बदल दिया जाता है। इस प्रकार बने अक्षर-समूह में निम्नलिखित में से कौन-सा अक्षर दो बार आएगा?

(1) B

(2) J

(3) S

(4) F ✔

Q.12 Refer to the following letter and symbol series and answer the question that follows. Counting to be done from left to right only.

(Left) A Y Q * O & % M K E ! D R U ^ @ L M $ T Q (Right)

How many such symbols are there each of which is immediately preceded by a letter and also immediately followed by another symbol?

निम्नलिखित अक्षर और प्रतीक श्रृंखला को देखें और उसके बाद दिए गए प्रश्न का उत्तर दें। गिनती केवल बाएँ से दाएँ की जानी है।

(बाएँ) A Y Q * O & % M K E ! D R U ^ @ L M $ T Q (दाएँ)

ऐसे कितने प्रतीक हैं जिनमें से प्रत्येक के ठीक पहले एक अक्षर है और ठीक बाद एक अन्य प्रतीक है?

(1) 0

(2) 1

(3) 3

(4) 2 ✔

Q.13 D is B's mother. B is the brother of C's husband. C's husband is A's son. How is A related to D?

D, B की माता है। B, C के पति का भाई है। C का पति, A का पुत्र है। A का D से क्या संबंध है?

(1) Husband / पति ✔

(2) Father / पिता

(3) Mother / माता

(4) Son / पुत्र

Q.14 In a certain code language, 'VICE' is coded as '5731' and 'COST' is coded as '2148'. What is the code for 'C' in the given code language?

एक निश्चित कूट भाषा में, 'VICE' को '5731' के रूप में और 'COST' को '2148' के रूप में कूटबद्ध किया जाता है। दी गई कूट भाषा में 'C' के लिए क्या कूट है?

(1) 1 ✔

(2) 2

(3) 3

(4) 4

Q.15 Mary ranked 15th from the top and 16th from the bottom in her class. How many students are there in the class?

मैरी अपनी कक्षा में ऊपर से 15वें और नीचे से 16वें स्थान पर है। कक्षा में कितने विद्यार्थी हैं?

(1) 29

(2) 32

(3) 31

(4) 30 ✔

Q.16 Refer to the given letter series and answer the question that follows. Counting to be done from left to right only.

(Left) T B Y M R E S I C X Z O W A Q D F H G U K (Right)

How many such consonants are there, each of which is immediately preceded by a vowel and also immediately followed by a vowel?

दी गई अक्षर श्रृंखला को देखें और उसके बाद दिए गए प्रश्न का उत्तर दें।

गिनती केवल बाएँ से दाएँ की जानी है।

(बाएँ) T B Y M R E S I C X Z O W A Q D F H G U K (दाएँ)

ऐसे कितने व्यंजन हैं, जिनमें से प्रत्येक के ठीक पहले एक स्वर है और ठीक बाद भी एक स्वर है?

(1) 1

(2) 3

(3) 2 ✔

(4) 4

Q.17 Select the option that is related to the fifth letter-cluster in the same way as the second letter-cluster is related to the first letter-cluster and the fourth letter-cluster is related to the third letter-cluster.

COMPUTER : DPNQVUFS :: MODEM : NPEFN :: RADIO : ?

उस विकल्प का चयन करें जो पाँचवें अक्षर-समूह से उसी प्रकार संबंधित है, जिस प्रकार दूसरा अक्षर-समूह पहले अक्षर-समूह से संबंधित है और चौथा अक्षर-समूह तीसरे अक्षर-समूह से संबंधित है।

COMPUTER : DPNQVUFS :: MODEM : NPEFN :: RADIO : ?

(1) SBEEP

(2) SBEJP ✔

(3) OIDAR

(4) BESJP

Q.18 Seven people, A, B, C, D, E, F and G, are sitting in a straight line, facing the north. Only two people sit between C and E. B sits second to the left of A. Only one person (D) sits to the left of G. C is an immediate neighbour of G. Who is sitting at the fourth position from the extreme right end of the line?

सात व्यक्ति, A, B, C, D, E, F और G, उत्तर की ओर मुख करके एक सीधी पंक्ति में बैठे हैं। C और E के बीच केवल दो व्यक्ति बैठे हैं। B, A के बाएँ से दूसरे स्थान पर बैठा है।
G के बाईं ओर केवल एक व्यक्ति (D) बैठा है। C, G का निकटतम पड़ोसी है।
पंक्ति के दाएँ छोर से चौथे स्थान पर कौन बैठा है?

(1) B
(2) E
(3) F ✔
(4) C

Q.19 Refer to the following letter and symbol series and answer the question that follows. Counting to be done from left to right only.
(Left) Q * D M A & R T $ L ^ @ # Q R O E K ! U D % T M A K (Right)
If all the letters are dropped from the series, which of the following will be fifth from the right?

निम्नलिखित अक्षर और प्रतीक श्रृंखला को देखें और उसके बाद दिए गए प्रश्न का उत्तर दें। गिनती केवल बाएँ से दाएँ की जानी है।
(बाएँ) Q * D M A & R T $ L ^ @ # Q R O E K ! U D % T M A K (दाएँ)
यदि श्रृंखला से सभी अक्षर हटा दिए जाएँ, तो निम्नलिखित में से कौन-सा दाएँ से पाँचवें स्थान पर होगा?

(1) ^ ✔
(2) $
(3) @
(4) &

Q.20 Select the option in which the letter-clusters share the same relationship as that shared by the given pair of letter-clusters. Both the given pairs follow the same relationship.
EXP : IBT YLQ : CPU

उस विकल्प का चयन करें जिसमें अक्षर-समूहों के बीच वही संबंध है जो दिए गए अक्षर-समूहों के युग्म के बीच है। दिए गए दोनों युग्म एक ही संबंध का पालन करते हैं।
EXP : IBT YLQ : CPU

(1) GLV : KPZ ✔
(2) CMW : EKP
(3) AON : GQK
(4) LVB : NTF

Q.21 Which two signs should be interchanged to make the following equation correct?
268 ÷ 240 + 80 − 16 × 8 = 68

निम्नलिखित समीकरण को सही बनाने के लिए किन दो चिह्नों को आपस में बदला जाना चाहिए?
268 ÷ 240 + 80 − 16 × 8 = 68

(1) + and × / + और ×
(2) − and × / − और ×
(3) ÷ and + / ÷ और +
(4) ÷ and − / ÷ और − ✔

Q.22 In which of the following expressions will the expression 'H < J' be definitely true?

निम्नलिखित में से किस व्यंजक में व्यंजक 'H < J' निश्चित रूप से सत्य होगा?

(1) G < H ≥ I = J

(2) H ≥ G > I < J

(3) **J = I ≥ G > H ✔**

(4) H > G ≥ I = J

Q.23 Based on the English alphabetical order, three of the following four letter- clusters are alike in a certain way and thus form a group. Which letter-cluster DOES NOT belong to that group? (Note: The odd one out is not based on the number of consonants/vowels or their position in the letter-cluster.)

अंग्रेज़ी वर्णमाला क्रम के आधार पर, निम्नलिखित चार अक्षर-समूहों में से तीन किसी निश्चित प्रकार से एकसमान हैं और इस प्रकार एक समूह बनाते हैं। कौन-सा अक्षर-समूह उस समूह से संबंधित नहीं है? (ध्यान दें: असंगत अक्षर-समूह, उस अक्षर-समूह में व्यंजनों/स्वरों की संख्या या उनके स्थान पर आधारित नहीं है।)

(1) GDB

(2) VSQ

(3) PMK

(4) **JGF ✔**

Q.24 Read the given statements and conclusions carefully. Identify which of the given conclusions is/are true based on the given statements.

Statements:

D ≥ A = C, A > E ≤ F

Conclusions:

I. D > E

II. F > C

दिए गए कथनों और निष्कर्षों को ध्यानपूर्वक पढ़ें। पहचानें कि दिए गए कथनों के आधार पर दिए गए निष्कर्षों में से कौन-सा/से सत्य है/हैं।

कथन:

D ≥ A = C, A > E ≤ F

निष्कर्ष:

I. D > E

II. F > C

(1) **Only conclusion I is true. / केवल निष्कर्ष I सत्य है। ✔**

(2) Only conclusion II is true. / केवल निष्कर्ष II सत्य है।

(3) Either conclusion I or II is true. / या तो निष्कर्ष I या II सत्य है।

(4) Both conclusions I and II are true. / निष्कर्ष I और II दोनों सत्य हैं।

QuickSarkari.com | WhatsApp Channel | Telegram: t.me/quick_sarkari

Q.25 Select the set in which the numbers are related in the same way as are the numbers of the following sets.
(NOTE: Operations should be performed on the whole numbers, without breaking down the numbers into their constituent digits. E.g. 13 – Operations on 13 such as adding to/subtracting from/multiplying with 13 can be performed. Breaking down 13 into 1 and 3 and then performing mathematical operations on 1 and 3 is not allowed.)
(171, 19, 9)
(128, 16, 8)

उस समुच्चय का चयन करें जिसमें संख्याएँ उसी प्रकार संबंधित हैं जिस प्रकार निम्नलिखित समुच्चयों की संख्याएँ संबंधित हैं।
(ध्यान दें: संक्रियाएँ संख्याओं को उनके घटक अंकों में तोड़े बिना, पूर्ण संख्याओं पर की जानी चाहिए। उदाहरण के लिए, 13 – 13 पर संक्रियाएँ जैसे 13 में जोड़ना/13 में से घटाना/13 से गुणा करना आदि की जा सकती हैं। 13 को 1 और 3 में तोड़ना और फिर 1 और 3 पर गणितीय संक्रियाएँ करना वर्जित है।)
(171, 19, 9)
(128, 16, 8)

(1) (123, 11, 6)
(2) (200, 20, 9)
(3) (144, 16, 9) ✔
(4) (95, 19, 3)

Q.26 In the following number-pairs, the second number is obtained by applying certain mathematical operation(s) to the first number. Which numbers should replace X and Y, so that the pattern followed by the two numbers on the left side of :: is the same as that on the right side of ::?
(NOTE: Operations should be performed on the whole numbers, without breaking down the numbers into their constituent digits. E.g. 13 – Operations on 13 such as adding to/subtracting from/multiplying with 13 can be performed. Breaking down 13 into 1 and 3 and then performing mathematical operations on 1 and 3 is not allowed.)
X : 21 :: 27 : Y

निम्नलिखित संख्या-युग्मों में, दूसरी संख्या पहली संख्या पर कुछ निश्चित गणितीय संक्रिया/संक्रियाएँ करके प्राप्त की जाती है। X और Y के स्थान पर कौन-सी संख्याएँ आनी चाहिए, ताकि :: के बाईं ओर की दोनों संख्याओं द्वारा अनुसरित पैटर्न वही हो जो :: के दाईं ओर है?
(ध्यान दें: संक्रियाएँ संख्याओं को उनके घटक अंकों में तोड़े बिना, पूर्ण संख्याओं पर की जानी चाहिए। उदाहरण के लिए, 13 – 13 पर संक्रियाएँ जैसे 13 में जोड़ना/13 में से घटाना/13 से गुणा करना आदि की जा सकती हैं। 13 को 1 और 3 में तोड़ना और फिर 1 और 3 पर गणितीय संक्रियाएँ करना वर्जित है।)
X : 21 :: 27 : Y

(1) X = 15, Y = 33 ✔
(2) X = 16, Y = 28
(3) X = 15, Y = 35
(4) X = 3, Y = 5

Q.27 Select the set in which the numbers are related in the same way as are the numbers of the following sets.
(NOTE: Operations should be performed on the whole numbers, without breaking down the numbers into their constituent digits. E.g. 13 – Operations on 13 such as adding to/subtracting from/multiplying with 13 can be performed. Breaking down 13 into 1 and 3 and then performing mathematical operations on 1 and 3 is not allowed.)
(11, 154, 14)
(13, 156, 12)

उस समुच्चय का चयन करें जिसमें संख्याएँ उसी प्रकार संबंधित हैं जिस प्रकार निम्नलिखित समुच्चयों की संख्याएँ संबंधित हैं।
(ध्यान दें: संक्रियाएँ संख्याओं को उनके घटक अंकों में तोड़े बिना, पूर्ण संख्याओं पर की जानी चाहिए। उदाहरण के लिए, 13 – 13 पर संक्रियाएँ जैसे 13 में जोड़ना/13 में से घटाना/13 से गुणा करना आदि की जा सकती हैं। 13 को 1 और 3 में तोड़ना और फिर 1 और 3 पर गणितीय संक्रियाएँ करना वर्जित है।)
(11, 154, 14)
(13, 156, 12)

(1) (8, 148, 16)
(2) (12, 192, 16) ✔
(3) (42, 346, 8)
(4) (3, 71, 24)

Q.28 Read the given statements and conclusions carefully. Assuming that the information given in the statements is true, even if it appears to be at variance with commonly known facts, decide which of the given conclusions logically follow(s) from the statements.
Statements:
Some turnips are ships.
No ship is a bread.
Conclusions:
(I) Some turnips are breads.
(II) Some ships are turnips.

दिए गए कथनों और निष्कर्षों को ध्यानपूर्वक पढ़ें। यह मानते हुए कि कथनों में दी गई जानकारी सत्य है, भले ही वह सामान्यतः ज्ञात तथ्यों से भिन्न प्रतीत होती हो, निर्णय लें कि दिए गए निष्कर्षों में से कौन-सा/से निष्कर्ष तार्किक रूप से कथनों का अनुसरण करता है/करते हैं।
कथन:
कुछ शलगम, जहाज़ हैं।
कोई जहाज़, ब्रेड नहीं है।
निष्कर्ष:
(I) कुछ शलगम, ब्रेड हैं।
(II) कुछ जहाज़, शलगम हैं।

(1) Only conclusion (II) follows. / केवल निष्कर्ष (II) अनुसरण करता है। ✔
(2) Only conclusion (I) follows. / केवल निष्कर्ष (I) अनुसरण करता है।
(3) Both conclusions (I) and (II) follow. / निष्कर्ष (I) और (II) दोनों अनुसरण करते हैं।
(4) Neither conclusion (I) nor (II) follows. / न तो निष्कर्ष (I) और न ही (II) अनुसरण करता है।

QuickSarkari.com | WhatsApp Channel | Telegram: t.me/quick_sarkari

Q.29 If the water source is placed along X-Y as shown in the figure, then which of the following options will be the water reflection of the given figure?

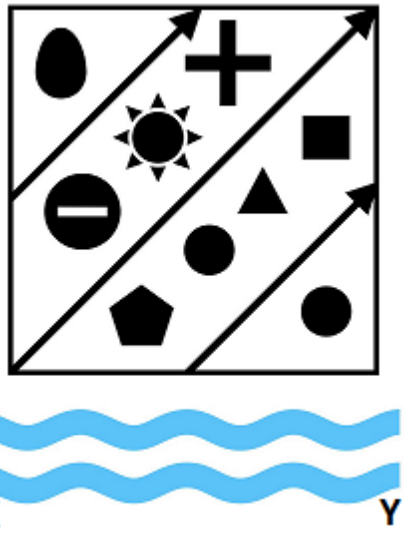

यदि जल स्रोत को आकृति में दर्शाए अनुसार X-Y के अनुदिश रखा जाए, तो निम्नलिखित में से कौन-सा विकल्प दी गई आकृति का जल प्रतिबिंब होगा?

(1)



(2)



✔

(3)



QuickSarkari.com | WhatsApp Channel | Telegram: t.me/quick_sarkari

(4) 

Q.30 Select the number from among the given options that can replace the question mark (?) in the following series.
67, 70, 76, 85, ?, 112

दिए गए विकल्पों में से उस संख्या का चयन करें जो निम्नलिखित श्रृंखला में प्रश्न चिह्न (?) के स्थान पर आ सकती है।
67, 70, 76, 85, ?, 112

(1) 100
(2) **97** ✔
(3) 92
(4) 103

Q.31 Each of the digits in the number 47198356 is arranged in the ascending order from left to right. Which of the following digits will be third from the left in the new number thus formed?

संख्या 47198356 के प्रत्येक अंक को बाएँ से दाएँ आरोही क्रम में व्यवस्थित किया जाता है। इस प्रकार बनी नई संख्या में बाएँ से तीसरा अंक निम्नलिखित में से कौन-सा होगा?

(1) 3
(2) **4** ✔
(3) 5
(4) 6

Q.32 If '+' means '–', '–' means '÷', '×' means '+', '÷' means '×', what will come in place of the question mark (?) in the following equation?
268 + 15 ÷ 224 – 8 × 182 = ?

यदि '+' का अर्थ '–', '–' का अर्थ '÷', '×' का अर्थ '+', '÷' का अर्थ '×' है, तो निम्नलिखित समीकरण में प्रश्न चिह्न (?) के स्थान पर क्या आएगा?
268 + 15 ÷ 224 – 8 × 182 = ?

(1) 40
(2) **30** ✔
(3) 32
(4) 42

QuickSarkari.com | WhatsApp Channel | Telegram: t.me/quick_sarkari

Q.33 Based on the English alphabetical order, three of the following four letter- cluster pairs are alike in a certain way and thus form a group. Which letter- cluster pair DOES NOT belong to that group?
(Note: The odd one out is not based on the number of consonants/vowels or their position in the letter-cluster.)
अंग्रेज़ी वर्णमाला क्रम के आधार पर, निम्नलिखित चार अक्षर-समूह युग्मों में से तीन किसी निश्चित प्रकार से एकसमान हैं और इस प्रकार एक समूह बनाते हैं। कौन-सा अक्षर-समूह युग्म उस समूह से संबंधित नहीं है?
(ध्यान दें: असंगत अक्षर-समूह, उस अक्षर-समूह में व्यंजनों/स्वरों की संख्या या उनके स्थान पर आधारित नहीं है।)

(1) KP - RU
(2) **EL - TY ✔**
(3) MR - TW
(4) OT - VY

Q.34 If '+' means '÷', '–' means '+', '×' means '–' and '÷' means '×', then what will be the value of the following expression?
[{(20 × 16) – (2 ÷ 3)} + (3 – 2)] ÷ 1
यदि '+' का अर्थ '÷', '–' का अर्थ '+', '×' का अर्थ '–' और '÷' का अर्थ '×' है, तो निम्नलिखित व्यंजक का मान क्या होगा?
[{(20 × 16) – (2 ÷ 3)} + (3 – 2)] ÷ 1

(1) 8
(2) **2 ✔**
(3) 1
(4) 4

Q.35 What should come in place of the question mark (?) in the given series? 93 79 66 ? 43
दी गई श्रृंखला में प्रश्न चिह्न (?) के स्थान पर क्या आना चाहिए?
93 79 66 ? 43

(1) 51
(2) **54 ✔**
(3) 53
(4) 52

QuickSarkari.com | WhatsApp Channel | Telegram: t.me/quick_sarkari

Q.36 Read the given statements and conclusions carefully. Assuming that the information given in the statements is true, even if it appears to be at variance with commonly known facts, decide which of the given conclusions logically follow(s) from the statements.
Statements:
All wallets are corianders.
All foams are corianders.
Conclusions:
(I) Some wallets are foams.
(II) Some corianders are foams.
दिए गए कथनों और निष्कर्षों को ध्यानपूर्वक पढ़ें। यह मानते हुए कि कथनों में दी गई जानकारी सत्य है, भले ही वह सामान्यतः ज्ञात तथ्यों से भिन्न प्रतीत होती हो, निर्णय लें कि दिए गए निष्कर्षों में से कौन-सा/से निष्कर्ष तार्किक रूप से कथनों का अनुसरण करता है/करते हैं।
कथन:
सभी बटुए, धनिये हैं।
सभी फोम, धनिये हैं।
निष्कर्ष:
(I) कुछ बटुए, फोम हैं।
(II) कुछ धनिये, फोम हैं।

(1) Only conclusion (I) follows. / केवल निष्कर्ष (I) अनुसरण करता है।
(2) Neither conclusion (I) nor (II) follows. / न तो निष्कर्ष (I) और न ही (II) अनुसरण करता है।
(3) Only conclusion (II) follows. / केवल निष्कर्ष (II) अनुसरण करता है। ✔
(4) Both conclusions (I) and (II) follow. / निष्कर्ष (I) और (II) दोनों अनुसरण करते हैं।

Q.37 If '+' means '÷', '−' means '+', '×' means '−' and '÷' means '×', then, what will be the value of the following expression?
[{(20 × 16) − (5 ÷ 2))} + (3 − 4)] ÷ 5
यदि '+' का अर्थ '÷', '−' का अर्थ '+', '×' का अर्थ '−' और '÷' का अर्थ '×' है, तो निम्नलिखित व्यंजक का मान क्या होगा?
[{(20 × 16) − (5 ÷ 2))} + (3 − 4)] ÷ 5

(1) 15
(2) 10 ✔
(3) 5
(4) 20

Q.38 Identify the figure given in the options which when put in place of the question mark (?) will logically complete the series.

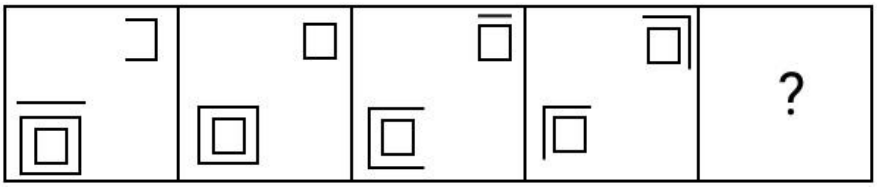

विकल्पों में दी गई उस आकृति की पहचान करें जिसे प्रश्न चिह्न (?) के स्थान पर रखने पर श्रृंखला तार्किक रूप से पूरी हो जाएगी।

(1)

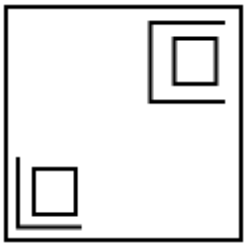

(2)

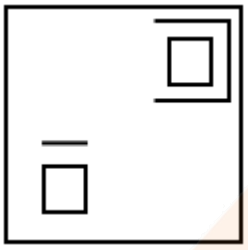

✔

(3)

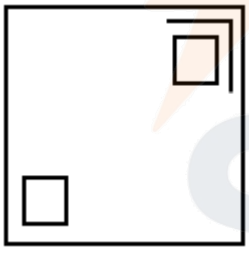

(4)

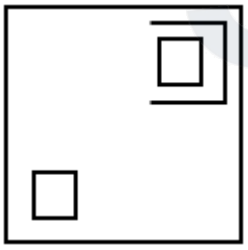

Q.39 What should come in place of the question mark (?) in the given series? 8, 20, 84, 676, ?

दी गई श्रृंखला में प्रश्न चिह्न (?) के स्थान पर क्या आना चाहिए?

8, 20, 84, 676, ?

(1) 10864

(2) **10820** ✔

(3) 10852

(4) 10800

QuickSarkari.com | WhatsApp Channel | Telegram: t.me/quick_sarkari

Q.40 Based on the English alphabetical order, three of the following four letter- clusters are alike in a certain way and thus form a group. Which letter-cluster DOES NOT belong to that group?
(Note: The odd one out is not based on the number of consonants/vowels or their position in the letter-cluster.)
अंग्रेज़ी वर्णमाला क्रम के आधार पर, निम्नलिखित चार अक्षर-समूहों में से तीन किसी निश्चित प्रकार से एकसमान हैं और इस प्रकार एक समूह बनाते हैं। कौन-सा अक्षर-समूह उस समूह से संबंधित नहीं है?
(ध्यान दें: असंगत अक्षर-समूह, उस अक्षर-समूह में व्यंजनों/स्वरों की संख्या या उनके स्थान पर आधारित नहीं है।)

(1) DBE ✔
(2) PRU
(3) HJM
(4) TVY

General Awareness

Q.41 On 19 June 2024, the Union Cabinet approved the development of a ₹76,200 crore all-weather greenfield deep-draft major port at which location in Maharashtra?
19 जून 2024 को, केंद्रीय मंत्रिमंडल ने महाराष्ट्र में किस स्थान पर ₹76,200 करोड़ की लागत से एक हर मौसम में संचालित होने वाले ग्रीनफील्ड डीप-ड्राफ्ट प्रमुख बंदरगाह के विकास को मंज़ूरी दी?

(1) Tarapur / तारापुर
(2) Vadhavan / वधावन ✔
(3) Dharamtar / धरमतर
(4) Jaigad / जयगढ़

Q.42 In June 2024, the Central Government announced how many additional houses under the Pradhan Mantri Awas Yojana (PMAY)?
जून 2024 में, केंद्र सरकार ने प्रधानमंत्री आवास योजना (PMAY) के तहत कितने अतिरिक्त घरों की घोषणा की?

(1) 3.5 crore / 3.5 करोड़
(2) 3 crore / 3 करोड़ ✔
(3) 1.5 crore / 1.5 करोड़
(4) 2 crore / 2 करोड़

Q.43 Which of the following schemes are operated by the Ministry of Rural Development?
1. Mahatma Gandhi National Rural Employment Guarantee Act (MGNREGA)
2. Pradhan Mantri Awas Yojana – Gramin (PMAY-G)
3. National Rural Livelihoods Mission (NRLM)
4. Pradhan Mantri Fasal Bima Yojana (PMFBY)
निम्नलिखित में से कौन-सी योजनाएँ ग्रामीण विकास मंत्रालय द्वारा संचालित की जाती हैं?
1. महात्मा गांधी राष्ट्रीय ग्रामीण रोज़गार गारंटी अधिनियम (MGNREGA)
2. प्रधानमंत्री आवास योजना – ग्रामीण (PMAY-G)
3. राष्ट्रीय ग्रामीण आजीविका मिशन (NRLM)
4. प्रधानमंत्री फसल बीमा योजना (PMFBY)

(1) All 1, 2, 3 and 4 / सभी 1, 2, 3 और 4
(2) 1 and 2 only / केवल 1 और 2
(3) 2 and 3 only / केवल 2 और 3
(4) 1, 2 and 3 only / केवल 1, 2 और 3 ✔

Q.44 In which of the following years was the 'Satyagraha Ashram' founded by Mahatma Gandhi ?
महात्मा गांधी द्वारा 'सत्याग्रह आश्रम' की स्थापना निम्नलिखित में से किस वर्ष में की गई थी?

(1) 1915 ✔
(2) 1925
(3) 1905
(4) 1910

Q.45 In which of the following years was the Lahore Resolution demanding a separate nation for Muslims passed?
मुसलमानों के लिए एक अलग राष्ट्र की माँग करने वाला लाहौर प्रस्ताव निम्नलिखित में से किस वर्ष में पारित किया गया था?

(1) 1947
(2) 1940 ✔
(3) 1945
(4) 1942

Q.46 In which of the following cities were the 'Round Table Conferences' held?
'गोलमेज सम्मेलन' निम्नलिखित में से किस शहर में आयोजित किए गए थे?

(1) London / लंदन ✔
(2) Lahore / लाहौर
(3) Delhi / दिल्ली
(4) Mumbai / मुंबई

Q.47 As of October 2021, how many nationalised banks are working in India?
अक्टूबर 2021 तक की स्थिति के अनुसार, भारत में कितने राष्ट्रीयकृत बैंक कार्यरत हैं?

(1) 12 ✔
(2) 18
(3) 15
(4) 10

Q.48 Who was the oldest athlete to represent India at Paris 2024?
पेरिस 2024 में भारत का प्रतिनिधित्व करने वाले सबसे अधिक आयु के एथलीट कौन थे?

(1) Vikash Singh / विकास सिंह
(2) Rohan Bopanna / रोहन बोपन्ना ✔
(3) Akshdeep Singh / अक्षदीप सिंह
(4) Neeraj Chopra / नीरज चोपड़ा

Q.49 Which of the following states extended its hockey sponsorship until 2036?
निम्नलिखित में से किस राज्य ने अपनी हॉकी प्रायोजन अवधि को 2036 तक बढ़ा दिया?

(1) Odisha / ओडिशा ✔
(2) Bihar / बिहार
(3) Chhattisgarh / छत्तीसगढ़
(4) West Bengal / पश्चिम बंगाल

Q.50 On which of the following dates did India attain independence from the British rule?

भारत ने निम्नलिखित में से किस तिथि को ब्रिटिश शासन से स्वतंत्रता प्राप्त की?

(1) January 25, 1950 / 25 जनवरी, 1950

(2) January 26, 1950 / 26 जनवरी, 1950

(3) August 14, 1947 / 14 अगस्त, 1947

(4) August 15, 1947 / 15 अगस्त, 1947 ✔

Q.51 Who became the first woman Law Secretary of India in 2025, marking a historic milestone in the Ministry of Law and Justice?

2025 में विधि एवं न्याय मंत्रालय में एक ऐतिहासिक उपलब्धि दर्ज करते हुए, भारत की पहली महिला विधि सचिव कौन बनीं?

(1) Pinky Anand / पिंकी आनंद

(2) Indu Malhotra / इंदु मल्होत्रा

(3) Anju Rathi Rana / अंजू राठी राणा ✔

(4) Annpurna Devi / अन्नपूर्णा देवी

Q.52 Which of the following institutions does NOT offer microfinance?

निम्नलिखित में से कौन-सी संस्था सूक्ष्म वित्त (माइक्रोफाइनेंस) प्रदान नहीं करती है?

(1) Commercial banks / वाणिज्यिक बैंक

(2) EXIM Bank / एक्ज़िम बैंक ✔

(3) Non-governmental organisations / गैर-सरकारी संगठन

(4) Credit unions / क्रेडिट यूनियन

Q.53 Which platform, in collaboration with the Ministry of Agriculture and Farmers Welfare, launched a digital exhibition titled 'Millet: Seeds of Change' in May 2024?

किस प्लेटफ़ॉर्म ने कृषि एवं किसान कल्याण मंत्रालय के सहयोग से मई 2024 में 'मिलेट: सीड्स ऑफ चेंज' (Millet: Seeds of Change) नामक एक डिजिटल प्रदर्शनी शुरू की?

(1) Life of Pix / लाइफ ऑफ पिक्स

(2) Adobe Stock / एडोबी स्टॉक

(3) Burst by Shopify / बर्स्ट बाय शॉपिफाई

(4) Google Arts and Culture / गूगल आर्ट्स एंड कल्चर ✔

Q.54 Who captained the Indian men's hockey team at the 2024 Paris Olympics?

2024 पेरिस ओलंपिक में भारतीय पुरुष हॉकी टीम की कप्तानी किसने की?

(1) Jarmanpreet Singh / जरमनप्रीत सिंह

(2) Surender Kumar / सुरेंदर कुमार

(3) Harmanpreet Singh / हरमनप्रीत सिंह ✔

(4) Amit Rohidas / अमित रोहिदास

Q.55 Suppose a production function is represented as q=f(L,K). What does 'f' represent in this context?
मान लीजिए कि एक उत्पादन फलन को q=f(L,K) के रूप में दर्शाया गया है। इस संदर्भ में 'f' क्या दर्शाता है?

(1) A fixed cost function used to calculate capital depreciation over time / समय के साथ पूँजी के मूल्यह्रास की गणना करने के लिए प्रयुक्त एक स्थिर लागत फलन

(2) A mathematical relationship that determines how inputs are converted into output / एक गणितीय संबंध जो यह निर्धारित करता है कि आगतों को निर्गत में कैसे परिवर्तित किया जाता है ✔

(3) A constant return to scale that applies to all production processes equally / पैमाने का एक स्थिर प्रतिफल जो सभी उत्पादन प्रक्रियाओं पर समान रूप से लागू होता है

(4) A fixed numerical value added to labour and capital to get total production / कुल उत्पादन प्राप्त करने के लिए श्रम और पूँजी में जोड़ा जाने वाला एक निश्चित संख्यात्मक मान

Q.56 In which year was the Committee of Parliament on Official Language constituted?
राजभाषा संबंधी संसदीय समिति का गठन किस वर्ष में किया गया था?

(1) 1973

(2) 1976 ✔

(3) 1980

(4) 1970

Q.57 What is the primary objective of the Pradhan Mantri Jan Dhan Yojana (PMJDY)?
प्रधानमंत्री जन धन योजना (PMJDY) का प्राथमिक उद्देश्य क्या है?

(1) To promote financial inclusion by ensuring access to bank accounts, insurance and credit / बैंक खातों, बीमा और ऋण तक पहुँच सुनिश्चित करके वित्तीय समावेशन को बढ़ावा देना ✔

(2) To provide subsidies for agricultural inputs / कृषि आगतों के लिए सब्सिडी प्रदान करना

(3) To enhance infrastructure in rural areas / ग्रामीण क्षेत्रों में बुनियादी ढाँचे को बढ़ाना

(4) To create a single national database for direct benefit transfer / प्रत्यक्ष लाभ अंतरण के लिए एक एकल राष्ट्रीय डेटाबेस बनाना

Q.58 Which Schedule of the Indian Constitution deals with the official languages of India?
भारतीय संविधान की कौन-सी अनुसूची भारत की राजभाषाओं से संबंधित है?

(1) Eighth / आठवीं ✔

(2) Tenth / दसवीं

(3) Fifth / पाँचवीं

(4) Seventh / सातवीं

Q.59 How do people holding speculative balances use their expectations about bond prices?
परिकल्पनात्मक शेष (speculative balances) रखने वाले लोग बॉन्ड की कीमतों के बारे में अपनी प्रत्याशा का उपयोग कैसे करते हैं?

(1) They invest in shares instead of bonds. / वे बॉन्ड के बजाय शेयरों में निवेश करते हैं।

(2) They sell bonds when their prices are low. / वे बॉन्ड तब बेचते हैं जब उनकी कीमतें कम होती हैं।

(3) They buy bonds when their prices are low. / वे बॉन्ड तब खरीदते हैं जब उनकी कीमतें कम होती हैं। ✔

(4) They use the money for day-to-day expenses. / वे धन का उपयोग रोज़मर्रा के खर्चों के लिए करते हैं।

Q.60 Which subsidiary company successfully launched India's first military-grade geospatial satellite, built entirely by the private sector, on 7 April 2024?

किस सहायक कंपनी ने 7 अप्रैल 2024 को पूरी तरह से निजी क्षेत्र द्वारा निर्मित भारत के पहले सैन्य-श्रेणी के भू-स्थानिक उपग्रह को सफलतापूर्वक प्रक्षेपित किया?

(1) Tata Advanced Systems Ltd. / टाटा एडवांस्ड सिस्टम्स लिमिटेड ✔

(2) Blue Sky Analytics Ltd. / ब्लू स्काई एनालिटिक्स लिमिटेड

(3) Astrome Technologies Pvt. Ltd. / एस्ट्रोम टेक्नोलॉजीज प्राइवेट लिमिटेड

(4) Spacezone India Private Ltd. / स्पेसज़ोन इंडिया प्राइवेट लिमिटेड

Q.61 What happens when baking soda is heated?

बेकिंग सोडा को गर्म करने पर क्या होता है?

(1) $2NaOH \rightarrow (Heat)\ 2NaO + H_2O$ / $2NaOH \rightarrow (ऊष्मा)\ 2NaO + H_2O$

(2) $2NaHCO_3 \rightarrow (Heat)\ 2NaCO_2 + H_2O + CO$ / $2NaHCO_3 \rightarrow (ऊष्मा)\ 2NaCO_2 + H_2O + CO$

(3) $2NaHCO_3 \rightarrow (Heat)\ Na_2CO_3 + H_2O + CO_2$ / $2NaHCO_3 \rightarrow (ऊष्मा)\ Na_2CO_3 + H_2O + CO_2$ ✔

(4) $2NaOH \rightarrow (Heat)\ Na + H_2O + NaO$ / $2NaOH \rightarrow (ऊष्मा)\ Na + H_2O + NaO$

Q.62 Which of the following is INCORRECT about the dismissal of council of ministers of Union?

संघ की मंत्रिपरिषद की बर्खास्तगी के बारे में निम्नलिखित में से कौन-सा कथन गलत है?

(1) The President can dismiss the Council of Ministers if it loses the confidence of the Lok Sabha. / यदि मंत्रिपरिषद लोकसभा का विश्वास खो देती है, तो राष्ट्रपति मंत्रिपरिषद को बर्खास्त कर सकते हैं।

(2) The entire Council of Ministers resigns if the Prime Minister resigns. / यदि प्रधानमंत्री त्यागपत्र देते हैं, तो पूरी मंत्रिपरिषद त्यागपत्र दे देती है।

(3) The Prime Minister can ask a minister to resign or advise the President to dismiss them. / प्रधानमंत्री किसी मंत्री को त्यागपत्र देने के लिए कह सकते हैं या राष्ट्रपति को उसे बर्खास्त करने की सलाह दे सकते हैं।

(4) The Council of Ministers can be dismissed collectively by a vote of no- confidence in the Rajya Sabha. / राज्यसभा में अविश्वास प्रस्ताव द्वारा मंत्रिपरिषद को सामूहिक रूप से बर्खास्त किया जा सकता है। ✔

Q.63 What controls the genetic traits of living organisms?

सजीवों के आनुवंशिक लक्षणों को कौन नियंत्रित करता है?

(1) Food that we eat / हमारे द्वारा खाया जाने वाला भोजन

(2) Proteins made by DNA / DNA द्वारा निर्मित प्रोटीन ✔

(3) Lifestyle / जीवनशैली

(4) Vitamins that we consume / हमारे द्वारा ग्रहण किए जाने वाले विटामिन

Q.64 According to the Ministry of Consumer Affairs, Food and Public Distribution, Government of India (as of October 2022), select the most appropriate option with respect to the correctness of the following statements.
a) India emerges as the world's largest producer and consumer of sugar.
b) India emerges as the world's second largest exporter of sugar.
उपभोक्ता मामले, खाद्य और सार्वजनिक वितरण मंत्रालय, भारत सरकार (अक्टूबर 2022 तक की स्थिति के अनुसार) के अनुसार, निम्नलिखित कथनों की सत्यता के संबंध में सबसे उपयुक्त विकल्प का चयन करें।
a) भारत विश्व के सबसे बड़े चीनी उत्पादक और उपभोक्ता के रूप में उभरा है।
b) भारत विश्व के दूसरे सबसे बड़े चीनी निर्यातक के रूप में उभरा है।

(1) Only b is correct. / केवल b सही है।
(2) Both a and b are incorrect. / a और b दोनों गलत हैं।
(3) **Both a and b are correct. / a और b दोनों सही हैं। ✔**
(4) Only a is correct. / केवल a सही है।

Q.65 The Rath Yatra procession takes place in which of the following religious places?
रथ यात्रा शोभायात्रा निम्नलिखित में से किस धार्मिक स्थल पर निकाली जाती है?

(1) Badrinath, Uttarakhand / बद्रीनाथ, उत्तराखंड
(2) **Puri, Odisha / पुरी, ओडिशा ✔**
(3) Kedarnath, Uttarakhand / केदारनाथ, उत्तराखंड
(4) Rameshwaram, Tamil Nadu / रामेश्वरम, तमिलनाडु

Q.66 As of December 2022, the Department of Official Language is under which ministry in the Government of India?
दिसंबर 2022 तक की स्थिति के अनुसार, राजभाषा विभाग भारत सरकार के किस मंत्रालय के अंतर्गत है?

(1) Ministry of Information and Broadcasting / सूचना एवं प्रसारण मंत्रालय
(2) **Ministry of Home Affairs / गृह मंत्रालय ✔**
(3) Ministry of Culture / संस्कृति मंत्रालय
(4) Ministry of Education / शिक्षा मंत्रालय

Q.67 How many nutrients are at least essential for plants optimal growth and development?
पौधों की इष्टतम वृद्धि और विकास के लिए कम से कम कितने पोषक तत्व आवश्यक हैं?

(1) 10
(2) **16 ✔**
(3) 8
(4) 5

Q.68 Which of the following statements are correct?
A. Sawdust is used to adulterate coriander powder.
B. Milk can be adulterated with urea, detergent and starch.
C. There is no method to detect an adulterant in food products.
D. Packaged food products are exclusively adulteration-free.
निम्नलिखित में से कौन-से कथन सही हैं?
A. धनिया पाउडर में मिलावट करने के लिए लकड़ी के बुरादे का उपयोग किया जाता है।
B. दूध में यूरिया, डिटर्जेंट और स्टार्च की मिलावट की जा सकती है।
C. खाद्य उत्पादों में मिलावटी पदार्थ का पता लगाने की कोई विधि नहीं है।
D. पैकेटबंद खाद्य उत्पाद पूर्णतः मिलावट-मुक्त होते हैं।

(1) Only C and D / केवल C और D
(2) **Only A and B / केवल A और B ✔**
(3) Only A and D / केवल A और D
(4) Only B and C / केवल B और C

Q.69 Which region of India is known for its extensive mangrove forests and the largest tidal delta in the world?
भारत का कौन-सा क्षेत्र अपने विस्तृत मैंग्रोव वनों और विश्व के सबसे बड़े ज्वारीय डेल्टा के लिए जाना जाता है?

(1) Kerala Backwaters / केरल बैकवाटर्स
(2) The Coromandel Coast / कोरोमंडल तट
(3) Konkan Coast / कोंकण तट
(4) **The Sundarbans / सुंदरबन ✔**

Q.70 Which of the following, acts as the President of India, in case of a vacancy in the office of both President and Vice President?
राष्ट्रपति और उपराष्ट्रपति दोनों के पद रिक्त होने की स्थिति में, निम्नलिखित में से कौन भारत के राष्ट्रपति के रूप में कार्य करता है?

(1) Prime Minister / प्रधानमंत्री
(2) Speaker of Lok Sabha / लोकसभा अध्यक्ष
(3) Deputy Chairman of Rajya Sabha / राज्यसभा के उपसभापति
(4) **Chief Justice of India / भारत के मुख्य न्यायाधीश ✔**

Q.71 Which of the following statements are correct?
A. Mettur project is located on the Periyar river.
B. Nagarjuna Sagar project is located on the Krishna river.
C. Rana Pratap Sagar project is located on the Chambal river.
निम्नलिखित में से कौन-से कथन सही हैं?
A. मेट्टूर परियोजना पेरियार नदी पर स्थित है।
B. नागार्जुन सागर परियोजना कृष्णा नदी पर स्थित है।
C. राणा प्रताप सागर परियोजना चंबल नदी पर स्थित है।

(1) Only A and B are correct. / केवल A और B सही हैं।
(2) A, B and C all are correct. / A, B और C सभी सही हैं।
(3) **Only B and C are correct. / केवल B और C सही हैं। ✔**
(4) Only A and C are correct. / केवल A और C सही हैं।

Q.72 Who proposed the double helical model of DNA?

DNA का द्वि-कुंडलित (डबल हेलिक्स) मॉडल किसने प्रस्तावित किया था?

(1) HG Khurana / एच.जी. खुराना

(2) Mendel / मेंडल

(3) **Watson and Crick / वॉटसन और क्रिक ✔**

(4) Miller / मिलर

Q.73 Sholas are temperate forests found in which of the following physiographical divisions of India?

शोला, भारत के निम्नलिखित में से किस भू-आकृतिक विभाग में पाए जाने वाले शीतोष्ण वन हैं?

(1) The Himalayas / हिमालय

(2) **Western Ghats / पश्चिमी घाट ✔**

(3) Garo and Khasi Hills / गारो और खासी पहाड़ियाँ

(4) Eastern Ghats / पूर्वी घाट

Q.74 The Central Institute of Hindi (Kendriya Hindi Sansthan) comes under the jurisdiction of which Indian Ministry?

केंद्रीय हिंदी संस्थान किस भारतीय मंत्रालय के अधिकार क्षेत्र में आता है?

(1) Ministry of Home Affairs / गृह मंत्रालय

(2) Ministry of Communications and Information Technology / संचार एवं सूचना प्रौद्योगिकी मंत्रालय

(3) **Ministry of Education / शिक्षा मंत्रालय ✔**

(4) Ministry of Culture / संस्कृति मंत्रालय

Q.75 Which of the following Articles of Indian Constitution authorises the Indian President to promulgate the ordinances?

भारतीय संविधान का निम्नलिखित में से कौन-सा अनुच्छेद भारत के राष्ट्रपति को अध्यादेश जारी करने के लिए अधिकृत करता है?

(1) **123 ✔**

(2) 127

(3) 125

(4) 129

Q.76 Who was entrusted with the responsibility of population statistics and implementation of the Registration of Births and Deaths Act, 1969?

जनसंख्या सांख्यिकी और जन्म एवं मृत्यु पंजीकरण अधिनियम, 1969 के कार्यान्वयन का उत्तरदायित्व किसे सौंपा गया था?

(1) Ministry of Home Affairs / गृह मंत्रालय

(2) Department of Social Welfare / समाज कल्याण विभाग

(3) **Registrar General and Census Commissioner, India / भारत के महारजिस्ट्रार और जनगणना आयुक्त ✔**

(4) Ministry of Statistics and Programme Implementation / सांख्यिकी और कार्यक्रम कार्यान्वयन मंत्रालय

Q.77 Who said that India is a quasi-federal state?

किसने कहा था कि भारत एक अर्ध-संघीय राज्य है?

(1) **KC Wheare / के.सी. व्हीयर ✔**

(2) Lord Bryee / लॉर्ड ब्राइस

(3) Ivor Jennings / आइवर जेनिंग्स

(4) Harold Laski / हेरोल्ड लास्की

Q.78 The space where the worshippers perform collective rituals in a Nagara style of temple is known as _____.

नागर शैली के मंदिर में वह स्थान जहाँ उपासक सामूहिक अनुष्ठान करते हैं, _____ कहलाता है।

(1) Garbhagriha / गर्भगृह

(2) Amalaka / आमलक

(3) **Mandapa / मंडप ✔**

(4) Shikhara / शिखर

Q.79 Which of the following was the main aim of C Rajagopalachari formula of 1944?

1944 के सी. राजगोपालाचारी फॉर्मूले का मुख्य उद्देश्य निम्नलिखित में से क्या था?

(1) **Unity between Muslim league and Indian National Congress / मुस्लिम लीग और भारतीय राष्ट्रीय कांग्रेस के बीच एकता ✔**

(2) Cooperation with British in second world war / द्वितीय विश्व युद्ध में अंग्रेज़ों के साथ सहयोग

(3) To establish communal harmony / सांप्रदायिक सद्भाव स्थापित करना

(4) Division of electoral seats / निर्वाचन सीटों का विभाजन

Q.80 How many number of High Court of Judicature are in India?

भारत में कितने उच्च न्यायालय (हाई कोर्ट ऑफ ज्यूडिकेचर) हैं?

(1) 22

(2) 21

(3) **25 ✔**

(4) 23

Arithmetical and Numerical Ability

Q.81 There are only two candidates contesting an election, a person who got 35% votes lost by 930 votes. Assuming that there were no invalid votes, the total number of votes casted are:

एक चुनाव में केवल दो उम्मीदवार चुनाव लड़ रहे हैं, 35% मत प्राप्त करने वाला व्यक्ति 930 मतों से हार गया। यह मानते हुए कि कोई मत अवैध नहीं था, डाले गए कुल मतों की संख्या है:

(1) **3100 ✔**

(2) 3200

(3) 3000

(4) 3300

Q.82 The ratio of milk and water in a 28-litre mixture is 5 : 2. Find the quantity (in litres) of water to be added to the mixture in order to make this ratio 1 : 1.

28 लीटर के एक मिश्रण में दूध और पानी का अनुपात 5 : 2 है। इस अनुपात को 1 : 1 करने के लिए मिश्रण में मिलाए जाने वाले पानी की मात्रा (लीटर में) ज्ञात कीजिए।

(1) 3

(2) 22

(3) 9

(4) **12 ✔**

Q.83 1525 people visited an exhibition on Tuesday, whereas 1830 people visited it on Wednesday. The percentage increase in the number of people visiting the exhibition on Wednesday compared to those who visited it on Tuesday was _____%.

मंगलवार को 1525 लोगों ने एक प्रदर्शनी देखी, जबकि बुधवार को 1830 लोगों ने इसे देखा। मंगलवार को प्रदर्शनी देखने वाले लोगों की तुलना में बुधवार को प्रदर्शनी देखने वाले लोगों की संख्या में प्रतिशत वृद्धि _____% थी।

(1) 17.67

(2) 20 ✔

(3) 21

(4) 16.67

Q.84 Two candidates contested a parliamentary election. The winning candidate secured 57% of the total votes polled and won by a margin of 42,000 votes. If all votes were valid, what was the total number of votes polled?

एक संसदीय चुनाव में दो उम्मीदवारों ने चुनाव लड़ा। विजयी उम्मीदवार ने डाले गए कुल मतों का 57% प्राप्त किया और 42,000 मतों के अंतर से जीत गया। यदि सभी मत वैध थे, तो डाले गए मतों की कुल संख्या कितनी थी?

(1) 4,50,000

(2) 3,00,000 ✔

(3) 3,50,000

(4) 4,60,000

Q.85 Stephan invested ₹24,000 in a fixed deposit scheme for 2 years at a compound interest rate of 10% per annum, compounded annually. How much amount will he receive on maturity?

स्टीफन ने ₹24,000 को 2 वर्ष के लिए एक सावधि जमा योजना में 10% वार्षिक चक्रवृद्धि ब्याज की दर पर निवेश किया, जिसमें ब्याज वार्षिक रूप से संयोजित होता है। परिपक्वता पर उसे कितनी राशि प्राप्त होगी?

(1) ₹26,400

(2) ₹29,040 ✔

(3) ₹5,040

(4) ₹2,400

Q.86 The number of prime numbers lying between 464 and 473, both included, is:

464 और 473 के बीच स्थित अभाज्य संख्याओं की संख्या (दोनों को शामिल करते हुए) है:

(1) Five / पाँच

(2) Four / चार

(3) Three / तीन

(4) One / एक ✔

QuickSarkari.com | WhatsApp Channel | Telegram: t.me/quick_sarkari

Q.87 Study the given table and answer the question that follows.
The given table shows the number of students who participated in football and cricket matches from four different schools.
School Number of students participated in Football Cricket A 114 266 B 207 333 C 240 400 D 275 440 The total number of students from schools A, B and D who participated in cricket matches was how many more than the total number of students from schools B, C and D who participated in football matches?

दी गई तालिका का अध्ययन करें और उसके बाद दिए गए प्रश्न का उत्तर दें।
दी गई तालिका चार अलग-अलग विद्यालयों से फुटबॉल और क्रिकेट मैचों में भाग लेने वाले विद्यार्थियों की संख्या दर्शाती है।
विद्यालय भाग लेने वाले विद्यार्थियों की संख्याफुटबॉल क्रिकेट A 114 266 B 207 333 C 240 400 D 275 440 क्रिकेट मैचों में भाग लेने वाले विद्यालय A, B और D के विद्यार्थियों की कुल संख्या, फुटबॉल मैचों में भाग लेने वाले विद्यालय B, C और D के विद्यार्थियों की कुल संख्या से कितनी अधिक थी?

(1) 317 ✔
(2) 285
(3) 250
(4) 359

Q.88 If $\sqrt{(3^n)} = 729$, then the value of n is:

यदि $\sqrt{(3^n)} = 729$ है, तो n का मान है:

(1) 4
(2) 12 ✔
(3) 6
(4) 2

Q.89 Find the principal that amounts to ₹321 in one year at 7% per annum compound interest, compounded annually.

वह मूलधन ज्ञात कीजिए जो 7% वार्षिक चक्रवृद्धि ब्याज की दर पर, वार्षिक रूप से संयोजित होने पर, एक वर्ष में ₹321 हो जाता है।

(1) ₹298
(2) ₹345
(3) ₹300 ✔
(4) ₹343

Q.90 The population of a city increased by 68,486 during a year. If the population of the city at the beginning of that year was 3,54,981, what was its population at the end of that year?

एक वर्ष के दौरान एक शहर की जनसंख्या में 68,486 की वृद्धि हुई। यदि उस वर्ष की शुरुआत में शहर की जनसंख्या 3,54,981 थी, तो उस वर्ष के अंत में उसकी जनसंख्या कितनी थी?

(1) 4,23,487
(2) 4,23,437
(3) 4,23,457
(4) 4,23,467 ✔

QuickSarkari.com | WhatsApp Channel | Telegram: t.me/quick_sarkari

Q.91 Mohan's salary is ₹10,000 per month. He spends ₹5.000 on house rent, ₹3.000 on bills and the rest of the amount is his monthly savings. Find his savings (in ₹) in a year, if in the month of his birthday he spent his complete monthly saving for birthday celebration.

मोहन का वेतन ₹10,000 प्रति माह है। वह ₹5.000 मकान किराए पर, ₹3.000 बिलों पर खर्च करता है और शेष राशि उसकी मासिक बचत है। यदि अपने जन्मदिन वाले महीने में उसने अपनी पूरी मासिक बचत जन्मदिन के उत्सव पर खर्च कर दी, तो एक वर्ष में उसकी बचत (₹ में) ज्ञात कीजिए।

(1) 18,000
(2) **22,000** ✔
(3) 20,000
(4) 24,000

Q.92 The average of the squares of the first 19 natural numbers is:

प्रथम 19 प्राकृत संख्याओं के वर्गों का औसत है:

(1) **130** ✔
(2) 129
(3) 132
(4) 131

Q.93 Find the simple interest on ₹4,500 for 3 years 5 months at the rate of 8% per annum.

₹4,500 पर 8% वार्षिक दर से 3 वर्ष 5 महीने का साधारण ब्याज ज्ञात कीजिए।

(1) ₹1,203
(2) ₹1,330
(3) ₹1,302
(4) **₹1,230** ✔

Q.94 The average weight of a family of five members (in kg) whose weights are 40 kg, 49 kg, 56 kg, 63 kg and 38 kg is:

पाँच सदस्यों वाले एक परिवार, जिनके भार 40 kg, 49 kg, 56 kg, 63 kg और 38 kg हैं, का औसत भार (kg में) है:

(1) **49.2** ✔
(2) 48.2
(3) 50.2
(4) 51.2

Q.95 The simple interest on a certain sum for 3 years at 19% per annum is ₹19,000 less than the simple interest on the same sum for 7 years at the same rate of interest.
Find the sum.

किसी निश्चित राशि पर 19% वार्षिक दर से 3 वर्षों का साधारण ब्याज, उसी राशि पर उसी ब्याज दर से 7 वर्षों के साधारण ब्याज से ₹19,000 कम है।
राशि ज्ञात कीजिए।

(1) ₹26,000
(2) **₹25,000** ✔
(3) ₹23,000
(4) ₹24,000

Q.96 The average (rounded off to two decimal place) of the squares of the first 18 natural numbers is:
प्रथम 18 प्राकृत संख्याओं के वर्गों का औसत (दशमलव के दो स्थानों तक पूर्णांकित) है:

(1) 119.17
(2) 116.17
(3) **117.17** ✔
(4) 118.17

Q.97 A vendor sold 10 chocolates for ₹1, making a profit of 30%. How many chocolates did he buy for ₹1?
एक विक्रेता ने ₹1 में 10 चॉकलेट बेचकर 30% का लाभ अर्जित किया। उसने ₹1 में कितनी चॉकलेट खरीदी थीं?

(1) 17
(2) 15
(3) 19
(4) **13** ✔

Q.98 The percentage profit earned by selling an article for ₹1,840 is equal to the percentage loss incurred by selling the same article for ₹1,460. At what price should the article be sold (in ₹) to make 20% profit?
एक वस्तु को ₹1,840 में बेचने पर अर्जित लाभ प्रतिशत, उसी वस्तु को ₹1,460 में बेचने पर हुई हानि प्रतिशत के बराबर है। 20% लाभ अर्जित करने के लिए वस्तु को किस मूल्य (₹ में) पर बेचा जाना चाहिए?

(1) **1,980** ✔
(2) 1,990
(3) 1,970
(4) 1,960

Q.99 When 0.888888888..... is converted into a fraction, the result is:
जब 0.888888888..... को भिन्न में बदला जाता है, तो परिणाम होता है:

(1) 8/90
(2) 9/11
(3) **8/9** ✔
(4) 9/10

Q.100 Study the given table and answer the question that follows.
The following table gives the sale of different types of batteries (in lakhs) manufactured by a company during the years 1992 to 1994.
Years Type of batteries AA 2AA 3AA 5AA 1992 268 278 294 413 1993 299 253 288 309 1994 320 289 270 325
What was the average annual sale (in lakhs) of all types of batteries taken together that were manufactured by the company during the years 1992 to 1994?
दी गई तालिका का अध्ययन करें और उसके बाद दिए गए प्रश्न का उत्तर दें।
निम्नलिखित तालिका वर्ष 1992 से 1994 के दौरान एक कंपनी द्वारा निर्मित विभिन्न प्रकार की बैटरियों की बिक्री (लाख में) दर्शाती है।
वर्ष बैटरियों के प्रकार AA 2AA 3AA 5AA 1992 268 278 294 413 1993 299 253 288 309 1994 320 289 270 325 वर्ष 1992 से 1994 के दौरान कंपनी द्वारा निर्मित सभी प्रकार की बैटरियों को मिलाकर उनकी औसत वार्षिक बिक्री (लाख में) कितनी थी?

(1) 995
(2) 1078
(3) **1202** ✔
(4) 1353

Q.101 The outer dimensions of an open box are 30 cm, 40 cm, and 20 cm. Its thickness is 2 cm. If 1 cm^3 of the metal used in the box weighs 0.25 gm, then the weight of the box is:

एक खुले बक्से की बाहरी विमाएँ 30 cm, 40 cm और 20 cm हैं। इसकी मोटाई 2 cm है। यदि बक्से में प्रयुक्त धातु के 1 cm^3 का भार 0.25 gm है, तो बक्से का भार है:

(1) 1.932 kg
(2) 1.538 kg
(3) **1.788 kg ✔**
(4) 1.628 kg

Q.102 Bablu walks to his office 2 km away from home. In the morning he covers the distance in 1.5 hours whereas, while returning home in the evening, he takes 60 more minutes to cover the same distance. Find his average speed (in km/hr) during the two-way journey.

बबलू घर से 2 km दूर स्थित अपने कार्यालय पैदल जाता है। सुबह वह यह दूरी 1.5 घंटे में तय करता है, जबकि शाम को घर लौटते समय उसे वही दूरी तय करने में 60 मिनट अधिक लगते हैं। दोनों ओर की यात्रा के दौरान उसकी औसत चाल (km/hr में) ज्ञात कीजिए।

(1) 2
(2) **1 ✔**
(3) 2.5
(4) 1.5

Q.103 Pipes A and B together can fill an empty tank in 6 2/3 minutes. If A takes 3 minutes less than B to fill the tank, then the time (in minutes) in which B alone would fill two-third part of the tank is:

पाइप A और B मिलकर एक खाली टंकी को 6 2/3 मिनट में भर सकते हैं। यदि A टंकी को भरने में B से 3 मिनट कम समय लेता है, तो B अकेले टंकी के दो-तिहाई भाग को कितने समय (मिनट में) में भरेगा?

(1) 12
(2) 15
(3) **10 ✔**
(4) 8

Q.104 An amount of ₹894 is divided among three people in the ratio of 4 : 19 : 7. The difference between the largest and the smallest shares in the distribution is:

₹894 की राशि को तीन व्यक्तियों में 4 : 19 : 7 के अनुपात में बाँटा जाता है। इस वितरण में सबसे बड़े और सबसे छोटे हिस्से के बीच का अंतर है:

(1) 360
(2) **447 ✔**
(3) 488
(4) 401

Quick Sarkari

Q.105 Each side of a square is 100 m. There are flower beds at the corners of the park, each in the form of a quadrant of radius 14 m. The area of the remaining part of the park is:
(Take π = 22/7)
एक वर्ग की प्रत्येक भुजा 100 m है। पार्क के कोनों पर फूलों की क्यारियाँ हैं, जिनमें से प्रत्येक 14 m त्रिज्या के चतुर्थांश के रूप में है। पार्क के शेष भाग का क्षेत्रफल है:
(π = 22/7 लीजिए)

(1) 8,394 m^2
(2) 9,344 m^2
(3) 9,394 m^2
(4) **9,384 m^2** ✔

Q.106 Workers P, Q and R are given. P can complete a piece of work in 10 days, Q will complete it in 12 days while R will complete it in 15 days. How many days are required to complete the work if they work together?
कर्मचारी P, Q और R दिए गए हैं। P एक कार्य को 10 दिनों में पूरा कर सकता है, Q उसे 12 दिनों में पूरा करेगा, जबकि R उसे 15 दिनों में पूरा करेगा। यदि वे एक साथ कार्य करें, तो कार्य को पूरा करने में कितने दिन लगेंगे?

(1) **4** ✔
(2) 20
(3) 18
(4) 12 1/3

Q.107 A dealer makes his goods 20% above the cost price. He then allows some discount on it and makes a profit of 10.4%. The rate of discount is ____.
एक व्यापारी अपने सामान पर क्रय मूल्य से 20% अधिक मूल्य अंकित करता है। फिर वह उस पर कुछ छूट देता है और 10.4% का लाभ अर्जित करता है। छूट की दर ____ है।

(1) 9%
(2) **8%** ✔
(3) 8 1/3%
(4) 9 1/3%

Q.108 X and Y invest in a business in the ratio 3 : 2. If 5% of the total profit goes to charity and X's share is ₹2,451, the total profit is:
X और Y एक व्यवसाय में 3 : 2 के अनुपात में निवेश करते हैं। यदि कुल लाभ का 5% दान में जाता है और X का हिस्सा ₹2,451 है, तो कुल लाभ है:

(1) **₹4,300** ✔
(2) ₹4,315
(3) ₹4,340
(4) ₹4,290

Q.109 Amit buys mangoes at the rate of 3 kg for ₹15 and sells them at 5 kg for ₹50. To earn ₹160 as profit, what quantity of mangoes (in kg) must he sell?
अमित ₹15 में 3 kg की दर से आम खरीदता है और उन्हें ₹50 में 5 kg की दर से बेचता है।
₹160 का लाभ अर्जित करने के लिए उसे कितनी मात्रा (kg में) में आम बेचने होंगे?

(1) 34
(2) **32** ✔
(3) 33
(4) 35

Q.110 A man sells a mobile phone for ₹600 and loses something. If he had sold it for ₹1,260, his gain would have been double the former loss. The cost price (in ₹) of the mobile phone is:

एक व्यक्ति एक मोबाइल फ़ोन ₹600 में बेचता है और उसे कुछ हानि होती है। यदि उसने इसे ₹1,260 में बेचा होता, तो उसका लाभ पहले हुई हानि का दोगुना होता। मोबाइल फ़ोन का क्रय मूल्य (₹ में) है:

(1) 820 ✔

(2) 830

(3) 840

(4) 810

Q.111 If a 1708-m long train crosses a pole in 122 seconds, then find the time (in seconds) taken by the train to cross a 840-m long platform.

यदि 1708 m लंबी एक ट्रेन एक खंभे को 122 सेकंड में पार करती है, तो 840 m लंबे प्लेटफ़ॉर्म को पार करने में ट्रेन द्वारा लिया गया समय (सेकंड में) ज्ञात कीजिए।

(1) 183

(2) 182 ✔

(3) 188

(4) 189

Q.112 A water pipe can fill a tank in 20 hours. However, due to poor water supply for 4 hours and 20 minutes, the water came with 60% of original pressure. How much time (in hours) did it take to fill the tank?

एक पानी का पाइप एक टंकी को 20 घंटे में भर सकता है। हालाँकि, कम जल आपूर्ति के कारण 4 घंटे 20 मिनट तक पानी मूल दाब के 60% दाब से आया। टंकी को भरने में कितना समय (घंटों में) लगा?

(1) 21 4/15

(2) 21 13/15

(3) 21 8/15

(4) 21 11/15 ✔

Q.113 If an electricity bill is paid before due date, one gets a reduction of 5% on the amount of the bill. By paying the bill before due date, a person got a reduction of ₹17. The amount of his electricity bill was:

यदि बिजली का बिल नियत तिथि से पहले भुगतान किया जाता है, तो बिल की राशि पर 5% की छूट मिलती है। नियत तिथि से पहले बिल का भुगतान करने पर एक व्यक्ति को ₹17 की छूट मिली। उसके बिजली के बिल की राशि थी:

(1) ₹340 ✔

(2) ₹310

(3) ₹320

(4) ₹330

Q.114 A and B entered into a partnership business, with B investing ₹50,000. After 4 months, B withdrew ₹7,500, and after another 5 months, he withdrew ₹9,000. What was A's investment (in ₹), if at the end of one year, he received 40% of the total profit?

A और B ने एक साझेदारी व्यवसाय शुरू किया, जिसमें B ने ₹50,000 का निवेश किया। 4 महीने बाद, B ने ₹7,500 निकाल लिए, और अगले 5 महीने बाद, उसने ₹9,000 निकाल लिए।

यदि एक वर्ष के अंत में A को कुल लाभ का 40% प्राप्त हुआ, तो A का निवेश (₹ में) कितना था?

(1) 27,250

(2) 28,000

(3) 28,500 ✔

(4) 26,500

Q.115 A motorist covers a total distance of 30 km in 47 minutes. For the first 10 minutes, he travels at a speed of x km/hr. For the next 25 minutes, he doubles his speed. In the final 12 minutes, he returns to his original speed of x km/hr. What is the value of x?

एक मोटर चालक 47 मिनट में कुल 30 km की दूरी तय करता है। पहले 10 मिनट तक वह x km/hr की चाल से यात्रा करता है। अगले 25 मिनट तक वह अपनी चाल दोगुनी कर देता है। अंतिम 12 मिनट में वह अपनी मूल चाल x km/hr पर लौट आता है।
x का मान क्या है?

(1) 30
(2) 28
(3) 25 ✔
(4) 22

Q.116 If 11.2 : x :: x : 34.3, and x > 0, then find the value of x.

यदि 11.2 : x :: x : 34.3 है, और x > 0 है, तो x का मान ज्ञात कीजिए।

(1) 24.4
(2) 19.6 ✔
(3) 23.9
(4) 17.7

Q.117 The base area of a conical object is 154 cm^2. If the height of the object is one fourth of 21 cm, then the curved surface area of the object is:
(Use π = 22/7)

एक शंक्वाकार वस्तु के आधार का क्षेत्रफल 154 cm^2 है। यदि वस्तु की ऊँचाई 21 cm की एक-चौथाई है, तो वस्तु का वक्र पृष्ठीय क्षेत्रफल कितना है?
(π = 22/7 का प्रयोग करें)

(1) 187 cm^2
(2) 190 cm^2
(3) 192.5 cm^2 ✔
(4) 183.5 cm^2

Q.118 Two pipes P_1 and P_2 can fill a cistern in 30 hours and 45 hours, respectively. If both the pipes are opened simultaneously, how long will it take to fill the cistern?

दो पाइप P_1 और P_2 एक टंकी को क्रमशः 30 घंटे और 45 घंटे में भर सकते हैं।
यदि दोनों पाइप एक साथ खोल दिए जाएँ, तो टंकी को भरने में कितना समय लगेगा?

(1) 90 hours / 90 घंटे
(2) 18 hours / 18 घंटे ✔
(3) 60 hours / 60 घंटे
(4) 15 hours / 15 घंटे

Q.119 If the difference between curved surface area and the total surface area of a solid cylinder is 37268 cm^2, then find the radius of the base. Take π = 22/7

यदि एक ठोस बेलन के वक्र पृष्ठीय क्षेत्रफल और संपूर्ण पृष्ठीय क्षेत्रफल का अंतर 37268 cm^2 है, तो आधार की त्रिज्या ज्ञात कीजिए। π = 22/7 लीजिए।

(1) 11 cm
(2) 66 cm
(3) 77 cm ✔
(4) 22 cm

Q.120 A 100 m long train overtakes a man moving at a speed of 9 km/hr (in same direction) in 20 seconds. How much time (in seconds) will it take this train to completely cross another 495 m long train, moving in the opposite direction at a speed of 75 km/hr?

100 m लंबी एक ट्रेन 9 km/hr की चाल से (समान दिशा में) चल रहे एक व्यक्ति को 20 सेकंड में पार करती है। यह ट्रेन विपरीत दिशा में 75 km/hr की चाल से चल रही 495 m लंबी एक अन्य ट्रेन को पूरी तरह से पार करने में कितना समय (सेकंड में) लेगी?

(1) 17
(2) 38
(3) 41
(4) 21 ✔

English Language and Comprehension

Q.121 Select the most appropriate option to fill in the blank.
Her dress was _____ than mine.

(1) brighter ✔
(2) more brighter
(3) bright
(4) most bright

Q.122 Sentences of a paragraph are given below in jumbled order. Arrange the sentences in the correct order to form a meaningful and coherent paragraph.
(A) Stammering is a habit disorder commonly linked with a lack of self- confidence.
(B) Psychologists often divide the process of addressing this issue into four steps.
(C) The first stage is understanding spoken language followed by simple sentence speaking.
(D) The child then learns speaking complex sentences finally by recognising the written alphabet.

(1) ABCD ✔
(2) BCAD
(3) DCBA
(4) CABD

Q.123 Select the most appropriate option that rectifies the underlined word in the given sentence.
The employee was charged on violating the company's code of conduct.

(1) with ✔
(2) over
(3) of
(4) at

Q.124 Select the option that will improve the highlighted part of the given sentence. Of the two ideas, this one is good.

(1) the worst
(2) the best
(3) bad
(4) **better ✔**

Q.125 Select the most appropriate option that rectifies the prepositional error(s) in the given sentence.
The software is compatible with working across different platforms.

(1) The software is compatible for working across different platforms.
(2) The software is compatible on working across different platforms.
(3) **The software is compatible with working on different platforms. ✔**
(4) The software is compatible with working with different platforms.

Q.126 Select the most appropriate option that rectifies the underlined word in the given sentence.
She tried to conceal the surprise party of her best friend.

(1) to
(2) with
(3) by
(4) **from ✔**

Q.127 Select the most appropriate option to fill in the blank.
She does not _____ understand the implications of her actions.

(1) practically
(2) **fully ✔**
(3) merely
(4) neatly

Q.128 Select the most appropriate option that rectifies the underlined preposition in the given sentence.
Sheila hasn't spoken to him on yesterday.

(1) since
(2) for
(3) **from ✔**
(4) during

Q.129 Sentences of a paragraph are given below in jumbled order. Arrange the sentences in the correct order to form a meaningful and coherent paragraph.
(A) Reading fiction develops empathy and imagination.
(B) Unlike non-fiction, it invites readers into completely new worlds.
(C) These stories make us see life from different perspectives.
(D) As a result, fiction holds a special place in many people's hearts.

(1) DCBA
(2) CADB
(3) **ABDC ✔**
(4) BACD

QuickSarkari.com | WhatsApp Channel | Telegram: t.me/quick_sarkari

Q.130 Select the most appropriate option to fill in the blank.
There was a _____ amount of liquid in the test tube.

(1) negligent
(2) neglected
(3) **negligible ✔**
(4) illegible

Q.131 Select the most appropriate option to fill in the blank.
He had _____ died in a road rage incident last month.

(1) totally
(2) **nearly ✔**
(3) indeed
(4) rather

Q.132 Select the most appropriate article to fill in the blank. If no article is needed, select 'No article required'.
I saw ___ eagle flying high in the sky.

(1) a
(2) **an ✔**
(3) No article required
(4) the

Q.133 Select the sentence that contains a grammatical error.

(1) During the intensive training program, the aspiring astronauts underwent a rigorous series of simulations, preparing them for the challenges of space exploration and extravehicular activities.
(2) In the wake of the devastating natural disaster, an outpouring of support from volunteers and aid organisations provided essential relief to the affected communities.
(3) Following a series of complex negotiations, the international trade agreement was finally ratified, marking a significant milestone in the economic cooperation between the participating nations.
(4) **The seasoned architect, with a portfolio of groundbreaking designs, submitted a ambitious proposal for the new civic centre, highlighting its sustainable features and community-centric layout. ✔**

Q.134 Select the most appropriate article to fill in the blank. If no article is needed, select 'No article required'.
He is looking for ___ job that matches his skills.

(1) **a ✔**
(2) the
(3) No article required
(4) an

Q.135 Select the sentence that contains a grammatical error.

(1) The Black Sea separates Eastern Europe from Western Asia.
(2) She has always dreamed of visiting the Maldives.
(3) **The Mount Everest is known for its challenging climbing routes. ✔**
(4) The President of France visited Canada last month.

Q.136

Read the following passage carefully and answer the questions that follow. The invention of the printing press in the 15th century by Johannes Gutenberg revolutionised the way knowledge was shared and preserved. Before this invention, books were handwritten, making them expensive and accessible only to the wealthy elite. The printing press introduced movable type, enabling the mass production of books and other written materials. As a result, literacy rates increased, and information spread rapidly across Europe. This breakthrough played a crucial role in significant historical movements, such as the Renaissance and the Reformation, by providing people with access to new ideas and perspectives. The printing press also paved the way for the development of newspapers, fostering communication and the exchange of information on a global scale. Today, the printing press is considered one of the most important inventions in human history, laying the foundation for modern education, media, and the free exchange of ideas. Its impact is a testament to the power of innovation in shaping society.

What inference can be drawn from the passage?

(1) The printing press was the sole reason for the Renaissance.

(2) Increased access to information can drive societal progress. ✔

(3) Handwritten books were of no cultural value before the printing press.

(4) The printing press had limited influence outside Europe.

Q.137

Read the following passage carefully and answer the questions that follow. The invention of the printing press in the 15th century by Johannes Gutenberg revolutionised the way knowledge was shared and preserved. Before this invention, books were handwritten, making them expensive and accessible only to the wealthy elite. The printing press introduced movable type, enabling the mass production of books and other written materials. As a result, literacy rates increased, and information spread rapidly across Europe. This breakthrough played a crucial role in significant historical movements, such as the Renaissance and the Reformation, by providing people with access to new ideas and perspectives. The printing press also paved the way for the development of newspapers, fostering communication and the exchange of information on a global scale. Today, the printing press is considered one of the most important inventions in human history, laying the foundation for modern education, media, and the free exchange of ideas. Its impact is a testament to the power of innovation in shaping society.

What is the most appropriate title for the passage?

(1) The Evolution of Communication

(2) The Printing Press: A Revolutionary Invention ✔

(3) The History of Books

(4) The Role of Technology in Education

Q.138

Read the following passage carefully and answer the questions that follow. The invention of the printing press in the 15th century by Johannes Gutenberg revolutionised the way knowledge was shared and preserved. Before this invention, books were handwritten, making them expensive and accessible only to the wealthy elite. The printing press introduced movable type, enabling the mass production of books and other written materials. As a result, literacy rates increased, and information spread rapidly across Europe. This breakthrough played a crucial role in significant historical movements, such as the Renaissance and the Reformation, by providing people with access to new ideas and perspectives. The printing press also paved the way for the development of newspapers, fostering communication and the exchange of information on a global scale. Today, the printing press is considered one of the most important inventions in human history, laying the foundation for modern education, media, and the free exchange of ideas. Its impact is a testament to the power of innovation in shaping society.

Which fact is mentioned in the passage?

(1) The printing press reduced the importance of literacy.

(2) Gutenberg's invention was only used for religious texts.

(3) **The printing press made books more affordable and widely available. ✔**

(4) Newspapers existed before the invention of the printing press.

Q.139

Read the following passage carefully and answer the questions that follow. The invention of the printing press in the 15th century by Johannes Gutenberg revolutionised the way knowledge was shared and preserved. Before this invention, books were handwritten, making them expensive and accessible only to the wealthy elite. The printing press introduced movable type, enabling the mass production of books and other written materials. As a result, literacy rates increased, and information spread rapidly across Europe. This breakthrough played a crucial role in significant historical movements, such as the Renaissance and the Reformation, by providing people with access to new ideas and perspectives. The printing press also paved the way for the development of newspapers, fostering communication and the exchange of information on a global scale. Today, the printing press is considered one of the most important inventions in human history, laying the foundation for modern education, media, and the free exchange of ideas. Its impact is a testament to the power of innovation in shaping society.

What is the central theme of the passage?

(1) The technological advancements during the Renaissance

(2) The role of handwritten books in preserving culture

(3) **The impact of the printing press on society and knowledge dissemination ✔**

(4) The invention of newspapers and their role in communication

Q.140

Read the following passage carefully and answer the questions that follow. The invention of the printing press in the 15th century by Johannes Gutenberg revolutionised the way knowledge was shared and preserved. Before this invention, books were handwritten, making them expensive and accessible only to the wealthy elite. The printing press introduced movable type, enabling the mass production of books and other written materials. As a result, literacy rates increased, and information spread rapidly across Europe. This breakthrough played a crucial role in significant historical movements, such as the Renaissance and the Reformation, by providing people with access to new ideas and perspectives. The printing press also paved the way for the development of newspapers, fostering communication and the exchange of information on a global scale. Today, the printing press is considered one of the most important inventions in human history, laying the foundation for modern education, media, and the free exchange of ideas. Its impact is a testament to the power of innovation in shaping society.

What tone does the author adopt in the passage?

(1) Humorous

(2) Critical

(3) **Appreciative ✔**

(4) Nostalgic

Q.141 Parts of a sentence are given below in jumbled order. Arrange the parts in the correct order to form a meaningful sentence.

A. because more population means more exploitation of natural resources,

B. population explosion comes under the negative limelight

C. and it isn't good for the environment

D. which leads to the devastation of flora and fauna

(1) **BADC ✔**

(2) ADCB

(3) BACD

(4) ACDB

Q.142 Select the most appropriate meaning of the given proverb.

Once bitten, twice shy.

(1) Inexperienced persons are nervous.

(2) Gather profit in gambling twice.

(3) Beginners have great luck.

(4) **Unpleasant experiences induce caution. ✔**

Q.143 Select the most appropriate ANTONYM of the given word.

Parsimonious

(1) Wealthy

(2) Miser

(3) **Generous ✔**

(4) Thrifty

Q.144 Select the most appropriate meaning of the given proverb.
Good wine needs no bush.

(1) A moral story needs no title.
(2) **A good product needs no promotion. ✔**
(3) A suitable place needs no boundaries.
(4) A virtuous man needs no introduction.

Q.145 Select the most appropriate option that can be used as a one-word substitute for the given group of words.
A person who eats human flesh

(1) **Cannibal ✔**
(2) Epicurean
(3) Omnivore
(4) Non-vegetarian

Q.146 Select the most appropriate option that can be used as a one-word substitute for the following group of words.
A person who hosts a variety show

(1) Curator
(2) **Compere ✔**
(3) Moderator
(4) Narrator

Q.147 Select the most appropriate synonym of the given word.
Allure

(1) Emphasise
(2) Awake
(3) **Fascinate ✔**
(4) Debate

Q.148 Select the option that can be used as a one-word substitute for the given phrase.
A country that has a king or queen

(1) Republic
(2) Plutocracy
(3) **Monarchy ✔**
(4) Democracy

Q.149 Select the correct spelling of the underlined INCORRECTLY spelt word in the given sentence.
She has all the skills necessery for the job.

(1) neceesary
(2) neccessary
(3) **necessary ✔**
(4) necassary

QuickSarkari.com | WhatsApp Channel | Telegram: t.me/quick_sarkari

Q.150 Select the INCORRECTLY spelt word.

(1) resilience
(2) locusts
(3) rappelling
(4) averice ✔

Q.151 Select the option that can be used as a one-word substitute for the underlined segment in the given sentence.
The medieval forerunner of chemistry involved various practices aimed at transforming base metals into gold.

(1) Hermeticism
(2) Alchemy ✔
(3) Occultism
(4) Transmutation

Q.152 Select the most appropriate meaning of the given proverb.
A journey of a thousand miles begins with a single step.

(1) Well begun is half the job done.
(2) All big tasks start with small steps. ✔
(3) Even small steps can decide your failure.
(4) Some journeys are endless.

Q.153 Select the most appropriate ANTONYM of the given word.
Hideous

(1) Offensive
(2) Sincere
(3) Attractive ✔
(4) Precious

Q.154 Select the most appropriate synonym of the given word.
Fluctuating

(1) Irresolute ✔
(2) Obstinate
(3) Timid
(4) Radical

Q.155 Select the most appropriate meaning of the given proverb.
Actions speak louder than words.

(1) No action is required.
(2) Nothing can be achieved without any effort.
(3) Your actions convey much more than what you say. ✔
(4) Words are stronger than actions.

QuickSarkari.com | WhatsApp Channel | Telegram: t.me/quick_sarkari

Q.156

Read the given passage and answer the questions that follow.
Whales, majestic creatures of the sea, undergo fascinating and complex processes at the time of death and its aftermath. When a whale dies, it typically sinks to the ocean floor, a phenomenon known as a 'whale fall'. This event creates a unique ecosystem that can sustain marine life for decades. The initial stage involves scavengers such as sharks feeding on the whale's flesh. As the whale's body decomposes, specialised bacteria break down its fat, releasing nutrients into the surrounding waters. Over time, this carcass supports various creatures, including bone-eating worms that feed on the whale's bones. The whale fall serves as a vital food source in deep-sea environments, which are often nutrient-poor. In contrast, when a whale washes ashore, it presents different challenges. The carcass quickly begins to decompose, releasing an overpowering smell and attracting scavengers like birds and foxes. As gases accumulate, the carcass can bloat and even explode if not carefully managed. The body can also pollute nearby water and soil, posing a health hazard. Disposal methods include burial, towing the carcass back to sea, or incineration, each carrying its own difficulties.

How would one describe the tone regarding the challenges of beached whale carcasses?

(1) Joyful and celebratory
(2) Critical and negative
(3) Sarcastic and dismissive
(4) Neutral with a focus on factual information ✔

Q.157

Read the given passage and answer the questions that follow.
Whales, majestic creatures of the sea, undergo fascinating and complex processes at the time of death and its aftermath. When a whale dies, it typically sinks to the ocean floor, a phenomenon known as a 'whale fall'. This event creates a unique ecosystem that can sustain marine life for decades. The initial stage involves scavengers such as sharks feeding on the whale's flesh. As the whale's body decomposes, specialised bacteria break down its fat, releasing nutrients into the surrounding waters. Over time, this carcass supports various creatures, including bone-eating worms that feed on the whale's bones. The whale fall serves as a vital food source in deep-sea environments, which are often nutrient-poor. In contrast, when a whale washes ashore, it presents different challenges. The carcass quickly begins to decompose, releasing an overpowering smell and attracting scavengers like birds and foxes. As gases accumulate, the carcass can bloat and even explode if not carefully managed. The body can also pollute nearby water and soil, posing a health hazard. Disposal methods include burial, towing the carcass back to sea, or incineration, each carrying its own difficulties.

What can be inferred about the impact of whale falls on deep-sea ecosystems?

(1) Whale falls have no impact on the ecosystem.
(2) Whale falls are harmful to sea creatures.
(3) Whale falls release nutrients and support marine life. ✔
(4) Whale falls disrupt marine life.

QuickSarkari.com | WhatsApp Channel | Telegram: t.me/quick_sarkari

Q.158

Read the given passage and answer the questions that follow.
Whales, majestic creatures of the sea, undergo fascinating and complex processes at the time of death and its aftermath. When a whale dies, it typically sinks to the ocean floor, a phenomenon known as a 'whale fall'. This event creates a unique ecosystem that can sustain marine life for decades. The initial stage involves scavengers such as sharks feeding on the whale's flesh. As the whale's body decomposes, specialised bacteria break down its fat, releasing nutrients into the surrounding waters. Over time, this carcass supports various creatures, including bone-eating worms that feed on the whale's bones. The whale fall serves as a vital food source in deep-sea environments, which are often nutrient-poor. In contrast, when a whale washes ashore, it presents different challenges. The carcass quickly begins to decompose, releasing an overpowering smell and attracting scavengers like birds and foxes. As gases accumulate, the carcass can bloat and even explode if not carefully managed. The body can also pollute nearby water and soil, posing a health hazard. Disposal methods include burial, towing the carcass back to sea, or incineration, each carrying its own difficulties.

How does the process of whale falls relate to real-world ocean ecosystems?

(1) Whale falls help to provide nutrients in deep-sea environments. ✔

(2) Whale falls harm the marine life living on the ocean floor.

(3) Whale falls are rarely found in nature.

(4) Whale falls lead to the extinction of deep-sea species.

Q.159

Read the given passage and answer the questions that follow.
Whales, majestic creatures of the sea, undergo fascinating and complex processes at the time of death and its aftermath. When a whale dies, it typically sinks to the ocean floor, a phenomenon known as a 'whale fall'. This event creates a unique ecosystem that can sustain marine life for decades. The initial stage involves scavengers such as sharks feeding on the whale's flesh. As the whale's body decomposes, specialised bacteria break down its fat, releasing nutrients into the surrounding waters. Over time, this carcass supports various creatures, including bone-eating worms that feed on the whale's bones. The whale fall serves as a vital food source in deep-sea environments, which are often nutrient-poor. In contrast, when a whale washes ashore, it presents different challenges. The carcass quickly begins to decompose, releasing an overpowering smell and attracting scavengers like birds and foxes. As gases accumulate, the carcass can bloat and even explode if not carefully managed. The body can also pollute nearby water and soil, posing a health hazard. Disposal methods include burial, towing the carcass back to sea, or incineration, each carrying its own difficulties.

According to the passage, which of the following is true about a beached whale?

(1) The whale carcass can pollute nearby land and water. ✔

(2) The whale cannot be studied for research.

(3) The whale carcass does not decompose.

(4) The whale will quickly float back to sea.

Q.160

Read the given passage and answer the questions that follow.
Whales, majestic creatures of the sea, undergo fascinating and complex processes at the time of death and its aftermath. When a whale dies, it typically sinks to the ocean floor, a phenomenon known as a 'whale fall'. This event creates a unique ecosystem that can sustain marine life for decades. The initial stage involves scavengers such as sharks feeding on the whale's flesh. As the whale's body decomposes, specialised bacteria break down its fat, releasing nutrients into the surrounding waters. Over time, this carcass supports various creatures, including bone-eating worms that feed on the whale's bones. The whale fall serves as a vital food source in deep-sea environments, which are often nutrient-poor. In contrast, when a whale washes ashore, it presents different challenges. The carcass quickly begins to decompose, releasing an overpowering smell and attracting scavengers like birds and foxes. As gases accumulate, the carcass can bloat and even explode if not carefully managed. The body can also pollute nearby water and soil, posing a health hazard. Disposal methods include burial, towing the carcass back to sea, or incineration, each carrying its own difficulties.

Identify the ANTONYM of the given word.
Majestic

(1) Powerful
(2) Grand
(3) Ordinary ✔
(4) Magnificent

Hindi Language and Comprehension

Q.161 निम्नलिखित वाक्य खंड क्रम से लिखें।
1. कॉलेज में पढ़ा रहे हैं
2. मजदूर हैं, तब भी वह
3. किशन के पिताजी एक
4. अपने बेटे को महंगे

(1) 2134
(2) 1234
(3) 3241 ✔
(4) 1432

Q.162 प्रस्तुत वाक्य का शुद्ध रूप चुनें- मैं तेरे को बता दूंगा

(1) मैं उनसे बता दूंगा |
(2) मैं आपसे बता दूंगा |
(3) मैं मुझे बता दूंगा
(4) मैं तुम्हें बता दूंगा| ✔

Q.163 'छछूंदर के सिर चमेली का तेल' लोकोक्ति का अर्थ है-

(1) छोटे कार्य के लिए बड़े-बड़े संसाधन जुटाना
(2) अपनी हैसियत से अधिक शेखी बघारना
(3) अयोग्य व्यक्ति के पास स्तरीय वस्तु का होना ✔
(4) बेमेल वस्तुओं को एक जगह एकत्र करना

Q.164 दिए गए वाक्य में उचित प्रेरणार्थक क्रिया शब्द का चयन करके रिक्त स्थान की पूर्ति करें - रोहित अपने पुत्र को गुरू से दीक्षा _____ है।

(1) दिलवाता ✔

(2) लिखवाता

(3) लिखवाया

(4) खिलवाता

Q.165 उचित कारक चिह्न चुनकर निम्नलिखित वाक्य के रिक्त स्थान की पूर्ति करें- स्थलीय जीवों में हाथी सब ___ बड़ा पशु है

(1) पर

(2) से ✔

(3) का

(4) में

Q.166 निम्नलिखित वाक्यांश के आधार पर सार्थक शब्द का चयन करें।

ऊपर आने वाला श्वास _____

(1) उदित

(2) उच्छवास ✔

(3) उन्नत

(4) उवास

Q.167 निम्नलिखित वाक्यों में से तीन वाक्य विशेष संदर्भ के कारण एक दूसरे संबन्धित हैं किन्तु एक वाक्य भिन्न है अतः उस अतिरिक्त वाक्य का चयन करें।

प्रेमचंद अपने समय के महान कथाकार थे। उनकी कहानियाँ समाज के हर वर्ग को प्रस्तुत करती हैं। उनकी कहानी ईदगाह में बाल मनोविज्ञान का अद्भुत चित्रण मिलता है। उनके द्वारा लिखित नाटक कर्बला कुछ भिन्न प्रकृति का है।

(1) उनकी कहानियाँ समाज के हर वर्ग को प्रस्तुत करती हैं।

(2) प्रेमचंद अपने समय के महान कथाकार थे।

(3) उनकी कहानी ईदगाह में बाल मनोविज्ञान का अद्भुत चित्रण मिलता है।

(4) उनके द्वारा लिखित नाटक कर्बला कुछ भिन्न प्रकृति का है। ✔

Q.168 दिए गए वाक्यों में से कौन सा वाक्य शुद्ध है?

(1) मन में आशा, संघर्ष करने की इच्छा और कर्मठता हो तो मनुष्य के लिए कुछ भी असंभव नहीं है। ✔

(2) कुछ भी असंभव नहीं है मन में आशा ,संघर्ष करने की इच्छा और कर्मठता हो तो मनुष्य के लिए ।

(3) मनुष्य के लिए कुछ भी असंभव नहीं है मन में आशा,संघर्ष करने की इच्छा और कर्मठता हो तो।

(4) मन में आशा, संघर्ष करने की इच्छा और कर्मठता हो तो मनुष्य के लिए असंभव नहीं है कुछ भी।

Q.169 नीचे दिए गए मुहावरे के अर्थ को चार विकल्पों में से कोई एक सही विकल्प चुनकर लिखिए।

विष घोलना -

(1) हार मान लेना

(2) झगड़ा करना

(3) बुराई फैलाना ✔

(4) दुविधा में पड़ना

Q.170 उचित वाक्यांश चुनकर निम्नलिखित वाक्य के रिक्त स्थान की पूर्ति करें- 'जिस समय वह यहाँ आई _____ मैं यहाँ नहीं था

(1) उस समय को

(2) उस समय पर ✔

(3) उस समय में

(4) उस समय के लिए

Q.171 निम्नलिखित वाक्यों में से तीन वाक्य विशेष संदर्भ के कारण एक दूसरे संबन्धित हैं किन्तु एक वाक्य भिन्न है अतः उस अतिरिक्त वाक्य का चयन करें।
विद्या आज इतनी मेहनत से पढ़ रही है। वह एक होनहार छात्रा है। उसमें सफलता पाने की प्रबल इच्छा है।
मेरा विश्वास है कि एक दिन वह अवश्य सफल हो जाएगी।

(1) उसमें सफलता पाने की प्रबल इच्छा है।
(2) विद्या आज इतनी मेहनत से पढ़ रही है।
(3) वह एक होनहार छात्रा है।
(4) मेरा विश्वास है कि एक दिन वह अवश्य सफल हो जाएगी। ✔

Q.172 निम्नलिखित वाक्य खंड क्रम से लिखें।
1. मुझे अच्छा अनुभव है
2. मैंने दस साल इस स्कूल
3. मैं टीचर हूँ और
4. में पढ़ाया है, इसलिए

(1) 4123
(2) 2143
(3) 3421
(4) 3241 ✔

Q.173 निम्नलिखित वाक्यांश के आधार पर सार्थक शब्द का चयन करें।
जिसके पास कुछ न हो____

(1) अभीष्ट
(2) अकिंचन ✔
(3) अनूदित
(4) अप्राप्य

Q.174 दिए गए वाक्य में उचित काल वाचक क्रिया विशेषण का चयन करके रिक्त स्थान की पूर्ति करें - स्वतंत्रता दिवस के अवसर पर _____ प्रत्येक सरकारी इमारत पर ध्वजारोहण होता है।

(1) ध्यान से
(2) प्राय:
(3) प्रातः ✔
(4) अन्दर

Q.175 उचित क्रिया शब्दों से वाक्य पूर्ण करें - सुरेश नौकर से खाना _____ है (पकाना)

(1) पकवाता ✔
(2) पकाएगा
(3) पकाता
(4) पका

QuickSarkari.com | WhatsApp Channel | Telegram: t.me/quick_sarkari

Q.176

नोट: गद्यांश के आधार पर अग्रलिखित प्रश्नों के उत्तर दीजिए।
'जनतंत्र' शब्द अंग्रेजी के 'डेमोक्रेसी' का हिंदी पर्याय है। इस शब्द का प्रयोग चिंतन के इतिहास में विभिन्न अर्थों में किया गया है। अपने व्यापक रूप में जनतंत्र एक निश्चित प्रकार की समाज व्यवस्था और शासन प्रणाली का द्योतक है। समाज व्यवस्था के रूप में जनतंत्र एक विशिष्ट मानववादी चिंतन का प्रतीक है। जनतंत्र सामाजिक जीवन में उन सभी परिस्थितियों का निवारण करना चाहता है, जो व्यक्तिगत प्रगति का मार्ग रोकती हैं। जनतंत्र आर्थिक, सामाजिक और राजनीतिक न्याय का पथ प्रशस्त करता है। शासन प्रणाली के रूप में जनतंत्र अपने नैतिक आदर्शों की पूर्ति के लिए राज्य की संप्रभुता पर नियंत्रण करना चाहता है, क्योंकि यह आदर्श जनता और समाज के बीच का जीवित विश्वास है। जनतंत्र के लिए यह अनिवार्य हो जाता है कि वह जनता और समाज द्वारा ही इन आदर्शों की प्राप्ति का प्रयास करे। इतिहास से ज्ञात होता है कि समाज और जनता की उच्चता सर्वप्रथम इसी शासन प्रणाली के रूप में व्यक्त हुई।

जनतंत्र राज्य की संप्रभुता पर नियंत्रण करना क्यों चाहता है?

(1) जनता के शोषण के लिए
(2) नैतिकता के पतन के लिए
(3) नैतिक आदर्शों की पूर्ति के लिए ✔
(4) जनता को नियंत्रित करने के लिए

Q.177

नोट: गद्यांश के आधार पर अग्रलिखित प्रश्नों के उत्तर दीजिए।
'जनतंत्र' शब्द अंग्रेजी के 'डेमोक्रेसी' का हिंदी पर्याय है। इस शब्द का प्रयोग चिंतन के इतिहास में विभिन्न अर्थों में किया गया है। अपने व्यापक रूप में जनतंत्र एक निश्चित प्रकार की समाज व्यवस्था और शासन प्रणाली का द्योतक है। समाज व्यवस्था के रूप में जनतंत्र एक विशिष्ट मानववादी चिंतन का प्रतीक है। जनतंत्र सामाजिक जीवन में उन सभी परिस्थितियों का निवारण करना चाहता है, जो व्यक्तिगत प्रगति का मार्ग रोकती हैं। जनतंत्र आर्थिक, सामाजिक और राजनीतिक न्याय का पथ प्रशस्त करता है। शासन प्रणाली के रूप में जनतंत्र अपने नैतिक आदर्शों की पूर्ति के लिए राज्य की संप्रभुता पर नियंत्रण करना चाहता है, क्योंकि यह आदर्श जनता और समाज के बीच का जीवित विश्वास है। जनतंत्र के लिए यह अनिवार्य हो जाता है कि वह जनता और समाज द्वारा ही इन आदर्शों की प्राप्ति का प्रयास करे। इतिहास से ज्ञात होता है कि समाज और जनता की उच्चता सर्वप्रथम इसी शासन प्रणाली के रूप में व्यक्त हुई।

वाक्यांश में रेखांकित शब्द का अर्थ क्या है?
शासन प्रणाली का द्योतक है।

(1) काम करने वाला
(2) घात लगाने वाला
(3) प्रकट करने वाला ✔
(4) देने वाला

Q.178

नोट: गद्यांश के आधार पर अग्रलिखित प्रश्नों के उत्तर दीजिए।
'जनतंत्र' शब्द अंग्रेजी के 'डेमोक्रेसी' का हिंदी पर्याय है। इस शब्द का प्रयोग चिंतन के इतिहास में विभिन्न अर्थों में किया गया है। अपने व्यापक रूप में जनतंत्र एक निश्चित प्रकार की समाज व्यवस्था और शासन प्रणाली का द्योतक है। समाज व्यवस्था के रूप में जनतंत्र एक विशिष्ट मानववादी चिंतन का प्रतीक है। जनतंत्र सामाजिक जीवन में उन सभी परिस्थितियों का निवारण करना चाहता है, जो व्यक्तिगत प्रगति का मार्ग रोकती हैं। जनतंत्र आर्थिक, सामाजिक और राजनीतिक न्याय का पथ प्रशस्त करता है। शासन प्रणाली के रूप में जनतंत्र अपने नैतिक आदर्शों की पूर्ति के लिए राज्य की संप्रभुता पर नियंत्रण करना चाहता है, क्योंकि यह आदर्श जनता और समाज के बीच का जीवित विश्वास है। जनतंत्र के लिए यह अनिवार्य हो जाता है कि वह जनता और समाज द्वारा ही इन आदर्शों की प्राप्ति का प्रयास करे। इतिहास से ज्ञात होता है कि समाज और जनता की उच्चता सर्वप्रथम इसी शासन प्रणाली के रूप में व्यक्त हुई।

समाज और जनता की उच्चता सर्वप्रथम किस शासन प्रणाली में व्यक्त हुई है?

(1) समाजतंत्र में
(2) राजतंत्र में
(3) **जनतंत्र में ✔**
(4) षड्यंत्र में

Q.179

नोट: गद्यांश के आधार पर अग्रलिखित प्रश्नों के उत्तर दीजिए।
'जनतंत्र' शब्द अंग्रेजी के 'डेमोक्रेसी' का हिंदी पर्याय है। इस शब्द का प्रयोग चिंतन के इतिहास में विभिन्न अर्थों में किया गया है। अपने व्यापक रूप में जनतंत्र एक निश्चित प्रकार की समाज व्यवस्था और शासन प्रणाली का द्योतक है। समाज व्यवस्था के रूप में जनतंत्र एक विशिष्ट मानववादी चिंतन का प्रतीक है। जनतंत्र सामाजिक जीवन में उन सभी परिस्थितियों का निवारण करना चाहता है, जो व्यक्तिगत प्रगति का मार्ग रोकती हैं। जनतंत्र आर्थिक, सामाजिक और राजनीतिक न्याय का पथ प्रशस्त करता है। शासन प्रणाली के रूप में जनतंत्र अपने नैतिक आदर्शों की पूर्ति के लिए राज्य की संप्रभुता पर नियंत्रण करना चाहता है, क्योंकि यह आदर्श जनता और समाज के बीच का जीवित विश्वास है। जनतंत्र के लिए यह अनिवार्य हो जाता है कि वह जनता और समाज द्वारा ही इन आदर्शों की प्राप्ति का प्रयास करे। इतिहास से ज्ञात होता है कि समाज और जनता की उच्चता सर्वप्रथम इसी शासन प्रणाली के रूप में व्यक्त हुई।

समाज व्यवस्था के रूप में जनतंत्र किसका प्रतीक है?

(1) साम्राज्यवादी व्यवस्था का
(2) आलोचनवादी दृष्टि का
(3) **एक विशिष्ट मानववादी चिंतन का ✔**
(4) पूंजीवादी चिंतन का

Q.180

नोट: गद्यांश के आधार पर अग्रलिखित प्रश्नों के उत्तर दीजिए।
'जनतंत्र' शब्द अंग्रेजी के 'डेमोक्रेसी' का हिंदी पर्याय है। इस शब्द का प्रयोग चिंतन के इतिहास में विभिन्न अर्थों में किया गया है। अपने व्यापक रूप में जनतंत्र एक निश्चित प्रकार की समाज व्यवस्था और शासन प्रणाली का द्योतक है। समाज व्यवस्था के रूप में जनतंत्र एक विशिष्ट मानववादी चिंतन का प्रतीक है। जनतंत्र सामाजिक जीवन में उन सभी परिस्थितियों का निवारण करना चाहता है, जो व्यक्तिगत प्रगति का मार्ग रोकती हैं। जनतंत्र आर्थिक, सामाजिक और राजनीतिक न्याय का पथ प्रशस्त करता है। शासन प्रणाली के रूप में जनतंत्र अपने नैतिक आदर्शों की पूर्ति के लिए राज्य की संप्रभुता पर नियंत्रण करना चाहता है, क्योंकि यह आदर्श जनता और समाज के बीच का जीवित विश्वास है। जनतंत्र के लिए यह अनिवार्य हो जाता है कि वह जनता और समाज द्वारा ही इन आदर्शों की प्राप्ति का प्रयास करे। इतिहास से ज्ञात होता है कि समाज और जनता की उच्चता सर्वप्रथम इसी शासन प्रणाली के रूप में व्यक्त हुई।

गद्यांश के लिए उपयुक्त शीर्षक क्या हो सकता है?

(1) आदर्श
(2) चिंतन
(3) प्रतीक
(4) **जनतंत्र ✔**

Q.181 निम्नलिखित मुहावरे के उचित अर्थ का चयन कीजिए- मल्हार अलापना

(1) मनचाही करना
(2) बहुत गुस्सा करना
(3) **चैन से जीवन कटना ✔**
(4) थोड़े में ही इतरा जाना

Q.182 निम्नलिखित वाक्य को ध्यानपूर्वक पढ़ें और वाक्य में त्रुटि की पहचान कर वाक्य शुद्ध करें।
इतनी दूर चलते हुये, मेरे पैरो में छले हो गया।

(1) इतनी दूर ताक चलते हैं, मेरे पैरों को छले हो गया।
(2) इतनी डेर तक चलते से, मेरे पैरो में छाले हो गाए।
(3) इतनी देर तक चलन को, मेरे पैरों से छले हो गय।
(4) **इतनी देर तक चलने से, मेरे पैरों में छाले हो गए। ✔**

Q.183 निम्नलिखित विकल्पों में से पैर का अनेकार्थि शब्द पहचानें।

(1) कमल
(2) **पद ✔**
(3) शीर्ष
(4) विधान

Q.184 निम्नलिखित विकल्पों में से अनत का तत्सम शब्द पहचानें।

(1) आर्य
(2) अंतिम
(3) **अन्यत्र ✔**
(4) अंत

Q.185 'मृगराज' का पर्यायवाची शब्द है-

(1) मयूर
(2) हिरन
(3) **सिंह ✔**
(4) हंस

Q.186 'मरीची' का पर्यायवाची शब्द है-

(1) मिर्ची

(2) बिजली

(3) **सूर्य ✔**

(4) यमुना

Q.187 निम्नलिखित विकल्पों में से दूसरा का अनेकार्थि शब्द पहचानें।

(1) अलग

(2) पराया

(3) **इतर ✔**

(4) अभिन्न

Q.188 निम्नलिखित वाक्य को ध्यानपूर्वक पढ़ें और वाक्य में त्रुटि की पहचान कर वाक्य शुद्ध करें।
माछली बहुत चिकुनी होती हैं, उसको पकड़ना आसन नही होता।

(1) मछली बहुत चीकनी होती हैं, उसको पकड़नि आसान नहीं होता।

(2) मच्छी बहुत चिकानी होती हैं, उसको पकडना आसान नहीं होता।

(3) **मछली बहुत चिकनी होती है, उसको पकड़ना आसान नहीं होता। ✔**

(4) मछली बहत चिकनी होती हैं, उसको पकड़ना आसान नही होती।

Q.189 'उन्नति' का पर्यायवाची शब्द है -

(1) अवनति

(2) पतन

(3) **उत्कर्ष ✔**

(4) दुर्भाग्य

Q.190 निम्नलिखित वाक्य को ध्यानपूर्वक पढ़ें और वाक्य में त्रुटि की पहचान कर वाक्य शुद्ध करें।
मेरे पितजी की अपनी गाड़ी बेच दी और स्कूर्टर ले लिया।

(1) मेरे पीताजी ने अपना गाड़ी बेच दि और स्कूटर ले लीया।

(2) मैरे पिताजी से अपनी गाड़ि बेच दी और स्कुटर ले लिया।

(3) **मेरे पिताजी ने अपनी गाड़ी बेच दी और स्कूटर ले लिया। ✔**

(4) मेरे पिताजि ने अपनी गड़ी बेच दी ओर स्कूट्र ले लेया।

Q.191 दिए गए मुहावरे का अर्थ बताएँ।
औघट चाल चलना

(1) नष्ट कर देना

(2) ऊँचाई पर चढ़ना

(3) **असली रास्ता छोड़कर चलना ✔**

(4) बाधा पैदा करना

Q.192 'निलय' का पर्यायवाची शब्द है-

(1) नृप

(2) घन

(3) **घर ✔**

(4) समुद्र

Q.193 निम्नलिखित लोकोक्ति का सही अर्थ पहचानें।
ककड़ी चोर और फांसी की सजा

(1) चोर को सबक सीखना
(2) **साधारण अपराध के लिए कड़ा दंड देना ✔**
(3) अन्याय के साथ न्याय करना
(4) उचित न्याय मिलना

Q.194 निम्नलिखित विकल्पों में से अचरज का तत्सम शब्द पहचानें।

(1) अष्ट
(2) आससी
(3) अष्टसी
(4) **आश्चर्य ✔**

Q.195 निम्नलिखित वाक्य को ध्यानपूर्वक पढ़ें और वाक्य में त्रुटि की पहचान कर वाक्य शुद्ध करें।
तुम्हे गरबों की सदा मदद कारनी चाहिए।

(1) तुम्हें गरीबों की सदा मदद करनी चहिए।
(2) तम्हें गरीब की सदा मदाद करने चाहिए।
(3) तुम्हें गरीबों की सदा मदद कारनी चाहिया।
(4) **तुम्हें गरीबों की सदा मदद करनी चाहिए। ✔**

Q.196

गद्यांश के आधार पर प्रश्न का उत्तर दें।
हमारा देश भारत उत्सवधर्मी है। विविधता हमारी पहचान है। विभिन्न संस्कृतियों और विभिन्न त्योहारों के साथ-साथ विविध कलाएँ भी हमारी अनूठी पहचान हैं। आपने देखा होगा कि भारत के अलग-अलग राज्यों की अपनी-अपनी विशिष्ट कलाएँ हैं। आपने यह भी देखा होगा कि हमारी कलाओं को त्योहारों, उत्सवों से अलग नहीं किया जा सकता। ये कलाएँ जन्मोत्सव से लेकर, शादी-ब्याह, पूजा तथा खेती-बाड़ी से भी जुड़ी हैं।
मनुष्य के जीवन से जुड़ी होने के कारण ही भारत की ये विशिष्ट कलाएँ विरासत के प्रति हमें उत्साह और विश्वास से भर देती हैं। क्या आपको यह नहीं लगता कि पर्वों-त्योहारों या फिर फसलों से कलाओं का जुड़ाव ही एक ओर इसे केवल मनोरंजन या अलंकरण होने से बचाता है, तो दूसरी ओर यही पहलू, प्राचीन परंपराओं की सतत निरंतरता को बनाए रखता है। वास्तव में यही अतीत और वर्तमान के बीच जुड़ाव की कड़ी भी है।
अगर हम आज पीछे मुड़कर देखे तो पाएँगे कि जनजातीय और लोककला शैलियों के सभी रूपों में एक व्यवस्था भी दिखाई पड़ती है, जो आगे चलकर शास्त्रीय कलाओं का आधार बनी। एक बात ध्यान देने की है कि आरम्भिक दौर में सभी कलाओं का संबंध लोक या समूह से ही था। बाद में चलकर जब इनका संबंध व्यवसाय से जुड़ा तो व्यक्ति केंद्रित होती चली गईं। मध्यकाल तक आते-आते साहित्य, चित्र, संगीत, नृत्य कलाएँ राजाओं और विभिन्न शासकों के संरक्षण में चली गईं और धीरे-धीरे शास्त्रीय नियमों में बँधीं। वे कलाकारों को अपनी अभिरुचियों के अनुरूप कलाओं को सुव्यवस्थित और परिष्कृत करने के लिए प्रोत्साहित भी करते रहते थे।

गद्यांश में प्रयुक्त शब्द 'अनुरूप' का सही विलोम शब्द दिए गए विकल्प में से चुनें -

(1) अनुकूल
(2) प्रतिकूल
(3) अनुशरण
(4) **प्रतिरूप ✔**

Q.197

गद्यांश के आधार पर प्रश्न का उत्तर दें।
हमारा देश भारत उत्सवधर्मी है। विविधता हमारी पहचान है। विभिन्न संस्कृतियों और विभिन्न त्योहारों के साथ-साथ विविध कलाएँ भी हमारी अनूठी पहचान हैं। आपने देखा होगा कि भारत के अलग-अलग राज्यों की अपनी-अपनी विशिष्ट कलाएँ हैं। आपने यह भी देखा होगा कि हमारी कलाओं को त्योहारों, उत्सवों से अलग नहीं किया जा सकता। ये कलाएँ जन्मोत्सव से लेकर, शादी-ब्याह, पूजा तथा खेती-बाड़ी से भी जुड़ी हैं।
मनुष्य के जीवन से जुड़ी होने के कारण ही भारत की ये विशिष्ट कलाएँ विरासत के प्रति हमें उत्साह और विश्वास से भर देती हैं। क्या आपको यह नहीं लगता कि पर्वों-त्योहारों या फिर फसलों से कलाओं का जुड़ाव ही एक ओर इसे केवल मनोरंजन या अलंकरण होने से बचाता है, तो दूसरी ओर यही पहलू, प्राचीन परंपराओं की सतत निरंतरता को बनाए रखता है। वास्तव में यही अतीत और वर्तमान के बीच जुड़ाव की कड़ी भी है।
अगर हम आज पीछे मुड़कर देखे तो पाएँगे कि जनजातीय और लोककला शैलियों के सभी रूपों में एक व्यवस्था भी दिखाई पड़ती है, जो आगे चलकर शास्त्रीय कलाओं का आधार बनी। एक बात ध्यान देने की है कि आरम्भिक दौर में सभी कलाओं का संबंध लोक या समूह से ही था। बाद में चलकर जब इनका संबंध व्यवसाय से जुड़ा तो व्यक्ति केंद्रित होती चली गईं। मध्यकाल तक आते-आते साहित्य, चित्र, संगीत, नृत्य कलाएँ राजाओं और विभिन्न शासकों के संरक्षण में चली गईं और धीरे-धीरे शास्त्रीय नियमों में बँधीं। वे कलाकारों को अपनी अभिरुचियों के अनुरूप कलाओं को सुव्यवस्थित और परिष्कृत करने के लिए प्रोत्साहित भी करते रहते थे।

अतीत और वर्तमान के बीच जुड़ाव की कड़ी क्या है।

(1) फसलों से रीति-रिवाज का जुड़ाव
(2) फसलों से बीजों का जुड़ाव
(3) फसलों से कलाओं का जुड़ाव ✔
(4) फसलों से खेती का जुड़ाव

Q.198

गद्यांश के आधार पर प्रश्न का उत्तर दें।
हमारा देश भारत उत्सवधर्मी है। विविधता हमारी पहचान है। विभिन्न संस्कृतियों और विभिन्न त्योहारों के साथ-साथ विविध कलाएँ भी हमारी अनूठी पहचान हैं। आपने देखा होगा कि भारत के अलग-अलग राज्यों की अपनी-अपनी विशिष्ट कलाएँ हैं। आपने यह भी देखा होगा कि हमारी कलाओं को त्योहारों, उत्सवों से अलग नहीं किया जा सकता। ये कलाएँ जन्मोत्सव से लेकर, शादी-ब्याह, पूजा तथा खेती-बाड़ी से भी जुड़ी हैं।
मनुष्य के जीवन से जुड़ी होने के कारण ही भारत की ये विशिष्ट कलाएँ विरासत के प्रति हमें उत्साह और विश्वास से भर देती हैं। क्या आपको यह नहीं लगता कि पर्वों-त्योहारों या फिर फसलों से कलाओं का जुड़ाव ही एक ओर इसे केवल मनोरंजन या अलंकरण होने से बचाता है, तो दूसरी ओर यही पहलू, प्राचीन परंपराओं की सतत निरंतरता को बनाए रखता है। वास्तव में यही अतीत और वर्तमान के बीच जुड़ाव की कड़ी भी है।
अगर हम आज पीछे मुड़कर देखे तो पाएँगे कि जनजातीय और लोककला शैलियों के सभी रूपों में एक व्यवस्था भी दिखाई पड़ती है, जो आगे चलकर शास्त्रीय कलाओं का आधार बनी। एक बात ध्यान देने की है कि आरम्भिक दौर में सभी कलाओं का संबंध लोक या समूह से ही था। बाद में चलकर जब इनका संबंध व्यवसाय से जुड़ा तो व्यक्ति केंद्रित होती चली गईं। मध्यकाल तक आते-आते साहित्य, चित्र, संगीत, नृत्य कलाएँ राजाओं और विभिन्न शासकों के संरक्षण में चली गईं और धीरे-धीरे शास्त्रीय नियमों में बँधीं। वे कलाकारों को अपनी अभिरुचियों के अनुरूप कलाओं को सुव्यवस्थित और परिष्कृत करने के लिए प्रोत्साहित भी करते रहते थे।

निम्नलिखित में से कोई एक हमारी पहचान नहीं है।

(1) विविधता भारत की पहचान रही है।
(2) विविध कलाएँ भारत की पहचान रही हैं।
(3) भारत उत्सवधर्मी है।
(4) एकतंत्रात्मक व्यवस्था भारत की पहचान रही है। ✔

QuickSarkari

Q.199

गद्यांश के आधार पर प्रश्न का उत्तर दें।
हमारा देश भारत उत्सवधर्मी है। विविधता हमारी पहचान है। विभिन्न संस्कृतियों और विभिन्न त्योहारों के साथ-साथ विविध कलाएँ भी हमारी अनूठी पहचान हैं। आपने देखा होगा कि भारत के अलग-अलग राज्यों की अपनी-अपनी विशिष्ट कलाएँ हैं। आपने यह भी देखा होगा कि हमारी कलाओं को त्योहारों, उत्सवों से अलग नहीं किया जा सकता। ये कलाएँ जन्मोत्सव से लेकर, शादी-ब्याह, पूजा तथा खेती-बाड़ी से भी जुड़ी हैं।
मनुष्य के जीवन से जुड़ी होने के कारण ही भारत की ये विशिष्ट कलाएँ विरासत के प्रति हमें उत्साह और विश्वास से भर देती हैं। क्या आपको यह नहीं लगता कि पर्वों-त्योहारों या फिर फसलों से कलाओं का जुड़ाव ही एक ओर इसे केवल मनोरंजन या अलंकरण होने से बचाता है, तो दूसरी ओर यही पहलू, प्राचीन परंपराओं की सतत निरंतरता को बनाए रखता है। वास्तव में यही अतीत और वर्तमान के बीच जुड़ाव की कड़ी भी है।
अगर हम आज पीछे मुड़कर देखे तो पाएँगे कि जनजातीय और लोककला शैलियों के सभी रूपों में एक व्यवस्था भी दिखाई पड़ती है, जो आगे चलकर शास्त्रीय कलाओं का आधार बनी। एक बात ध्यान देने की है कि आरम्भिक दौर में सभी कलाओं का संबंध लोक या समूह से ही था। बाद में चलकर जब इनका संबंध व्यवसाय से जुड़ा तो व्यक्ति केंद्रित होती चली गईं। मध्यकाल तक आते-आते साहित्य, चित्र, संगीत, नृत्य कलाएँ राजाओं और विभिन्न शासकों के संरक्षण में चली गईं और धीरे-धीरे शास्त्रीय नियमों में बँधीं। वे कलाकारों को अपनी अभिरुचियों के अनुरूप कलाओं को सुव्यवस्थित और परिष्कृत करने के लिए प्रोत्साहित भी करते रहते थे।

भारत की ये विशिष्ट कलाएँ विरासत के प्रति हमें उत्साह और विश्वास से क्यों भर देती हैं।

(1) क्योंकि ये हमारी चिंतन से जुड़ी हैं।
(2) क्योंकि ये हमारी आदतें बन चुकी हैं।
(3) क्योंकि ये हमारे जीवन से जुड़ी हैं। ✔
(4) क्योंकि ये हमारी मृत्यु से जुड़ी हैं।

Q.200

गद्यांश के आधार पर प्रश्न का उत्तर दें।
हमारा देश भारत उत्सवधर्मी है। विविधता हमारी पहचान है। विभिन्न संस्कृतियों और विभिन्न त्योहारों के साथ-साथ विविध कलाएँ भी हमारी अनूठी पहचान हैं। आपने देखा होगा कि भारत के अलग-अलग राज्यों की अपनी-अपनी विशिष्ट कलाएँ हैं। आपने यह भी देखा होगा कि हमारी कलाओं को त्योहारों, उत्सवों से अलग नहीं किया जा सकता। ये कलाएँ जन्मोत्सव से लेकर, शादी-ब्याह, पूजा तथा खेती-बाड़ी से भी जुड़ी हैं।
मनुष्य के जीवन से जुड़ी होने के कारण ही भारत की ये विशिष्ट कलाएँ विरासत के प्रति हमें उत्साह और विश्वास से भर देती हैं। क्या आपको यह नहीं लगता कि पर्वों-त्योहारों या फिर फसलों से कलाओं का जुड़ाव ही एक ओर इसे केवल मनोरंजन या अलंकरण होने से बचाता है, तो दूसरी ओर यही पहलू, प्राचीन परंपराओं की सतत निरंतरता को बनाए रखता है। वास्तव में यही अतीत और वर्तमान के बीच जुड़ाव की कड़ी भी है।
अगर हम आज पीछे मुड़कर देखे तो पाएँगे कि जनजातीय और लोककला शैलियों के सभी रूपों में एक व्यवस्था भी दिखाई पड़ती है, जो आगे चलकर शास्त्रीय कलाओं का आधार बनी। एक बात ध्यान देने की है कि आरम्भिक दौर में सभी कलाओं का संबंध लोक या समूह से ही था। बाद में चलकर जब इनका संबंध व्यवसाय से जुड़ा तो व्यक्ति केंद्रित होती चली गईं। मध्यकाल तक आते-आते साहित्य, चित्र, संगीत, नृत्य कलाएँ राजाओं और विभिन्न शासकों के संरक्षण में चली गईं और धीरे-धीरे शास्त्रीय नियमों में बँधीं। वे कलाकारों को अपनी अभिरुचियों के अनुरूप कलाओं को सुव्यवस्थित और परिष्कृत करने के लिए प्रोत्साहित भी करते रहते थे।

गद्यांश का उपयुक्त शीर्षक हो सकता है।

(1) भारतीय जागरण
(2) भारतीय गुफाएं
(3) भारतीय व्यवस्था
(4) भारतीय कलाएँ ✔

Answer Key / उत्तर कुंजी

1	**2**	**3**	**4**	**5**	**6**	**7**	**8**	**9**	**10**	**11**	**12**	**13**	**14**	**15**
3	1	4	2	3	3	4	2	4	4	4	4	1	1	4
16	**17**	**18**	**19**	**20**	**21**	**22**	**23**	**24**	**25**	**26**	**27**	**28**	**29**	**30**
3	2	3	1	1	4	3	4	1	3	1	2	1	2	2

31 2	32 2	33 2	34 2	35 2	36 3	37 2	38 2	39 2	40 1	41 2	42 2	43 4	44 1	45 2
46 1	47 1	48 2	49 1	50 4	51 3	52 2	53 4	54 3	55 2	56 2	57 1	58 1	59 3	60 1
61 3	62 4	63 2	64 3	65 2	66 2	67 2	68 2	69 4	70 4	71 3	72 3	73 2	74 3	75 1
76 3	77 1	78 3	79 1	80 3	81 1	82 4	83 2	84 2	85 2	86 4	87 1	88 2	89 3	90 4
91 2	92 1	93 4	94 1	95 2	96 3	97 4	98 1	99 3	100 3	101 3	102 2	103 3	104 2	105 4
106 1	107 2	108 1	109 2	110 1	111 2	112 4	113 1	114 3	115 3	116 2	117 3	118 2	119 3	120 4
121 1	122 1	123 1	124 4	125 3	126 4	127 2	128 3	129 3	130 3	131 2	132 2	133 4	134 1	135 3
136 2	137 2	138 3	139 3	140 3	141 1	142 4	143 3	144 2	145 1	146 2	147 3	148 3	149 3	150 4
151 2	152 2	153 3	154 1	155 3	156 4	157 3	158 1	159 1	160 3	161 3	162 4	163 3	164 1	165 2
166 2	167 4	168 1	169 3	170 2	171 4	172 4	173 2	174 3	175 1	176 3	177 3	178 3	179 3	180 4
181 3	182 4	183 2	184 3	185 3	186 3	187 3	188 3	189 3	190 3	191 3	192 3	193 2	194 4	195 4
196 4	197 3	198 4	199 3	200 4										

QuickSarkari.com | WhatsApp Channel | Telegram: t.me/quick_sarkari

DSSSB Exam August 2025

Participant ID	
Participant Name	
Test Center Name	
Test Date	05/08/2025
Test Time	9:00 AM - 11:00 AM
Subject	LABORATORY ATTENDANT

Section : **General intelligence and Reasoning Ability**

Q. In a certain code language, 'BOAT' is coded as '3519' and 'TUSK' is coded as '2458'. What is the code for 'T' in the given code language? 1

Ans

✗ 1. 2

✗ 2. 4

✓ 3. 5

✗ 4. 9

Question ID : **441009351627**
Option 1 ID : **4410091372871**
Option 2 ID : **4410091372872**
Option 3 ID : **4410091372870**
Option 4 ID : **4410091372873**

Q. Refer to the following letter series and answer the question that follows. Counting to be done from left to right only. 2

(Left) W E R B Z X L H M Y C O P U V T K F S I D N J (Right)

How many such consonants are there each of which is immediately preceded by a vowel and also immediately followed by a vowel?

Ans

✓ 1. One

✗ 2. Three

✗ 3. Two

✗ 4. None

Question ID : **441009351289**
Option 1 ID : **4410091371519**
Option 2 ID : **4410091371521**
Option 3 ID : **4410091371520**
Option 4 ID : **4410091371518**

QuickSarkari.com | WhatsApp Channel | Telegram: t.me/quick_sarkari

Q. 3 In a European inter-governmental conference, the representatives of France, Germany, Italy, Spain, England, Austria, Denmark and the Netherlands sit around a circular table, with everyone facing the centre during the meet. Exactly three people sit between the representatives of Spain and England. The representative of Spain, who is an immediate neighbour of the representative of France, sits third from the right of the representative of Italy. Exactly three people sit between the representatives of Italy and Germany. The representative of the Netherlands has those of Austria and Germany as immediate neighbours. The representative of which of the following countries is an immediate neighbour of the representative of Italy?

Ans
- ✗ 1. Netherlands
- ✗ 2. France
- ✗ 3. Austria
- ✓ 4. Denmark

Question ID : **441009351748**
Option 1 ID : **4410091373357**
Option 2 ID : **4410091373356**
Option 3 ID : **4410091373355**
Option 4 ID : **4410091373354**

Q. 4 In a certain code language,
'A + B' means 'A is the mother of B',
'A – B' means 'A is the brother of B',
'A % B' means 'A is the father of B' and
'A × B' means 'A is the sister of B'.
How is P related to R if 'P + S × N – Q % R'?

Ans
- ✗ 1. Daughter's daughter
- ✓ 2. Father's mother
- ✗ 3. Sister's mother
- ✗ 4. Mother's mother

Question ID : **441009351794**
Option 1 ID : **4410091373533**
Option 2 ID : **4410091373532**
Option 3 ID : **4410091373530**
Option 4 ID : **4410091373531**

Q. 5 All 34 students in a class are standing in a row, facing the north. Seema is 18th from the right end, while Reema is 20th from the left end. How many people are standing between Seema and Reema?

Ans
- ✗ 1. One
- ✗ 2. Four
- ✓ 3. Two
- ✗ 4. Three

Question ID : **441009351678**
Option 1 ID : **4410091373074**
Option 2 ID : **4410091373077**
Option 3 ID : **4410091373075**
Option 4 ID : **4410091373076**

Q. 6 A, B, C, D, E and F live on six different floors of the same building. The lowermost floor in the building is numbered 1, the floor above it is numbered 2, and so on till the the topmost floor is numbered 6. Exactly four people live between A and D. Only one person lives between A and C. E lives immediately above B. Only one person lives between E and F. How many people live between B and F?

Ans
✗ 1. Six

✗ 2. Five

✓ 3. Two

✗ 4. Four

Question ID : **441009351762**
Option 1 ID : **4410091373410**
Option 2 ID : **4410091373413**
Option 3 ID : **4410091373412**
Option 4 ID : **4410091373411**

Q. 7 Each of A, B, C, D, E, F and G goes to dance on a different day of a week, starting from Monday and ending on Sunday of the same week. D goes to dance on Friday. Exactly two people go to dance between A and D. Exactly one person goes to dance between A and G. B goes to dance on the day immediately after C. F goes to dance on one of the days after E. On which day does F go to dance?

Ans
✗ 1. Thursday

✗ 2. Tuesday

✗ 3. Monday

✓ 4. Wednesday

Question ID : **441009351715**
Option 1 ID : **4410091373225**
Option 2 ID : **4410091373223**
Option 3 ID : **4410091373222**
Option 4 ID : **4410091373224**

Q. 8 If each letter in the word ‘AUSTRALIA’ is changed to the letter immediately following it in the English alphabetical order, how many positions from the group of letters thus formed will be occupied by consonants?

Ans
✗ 1. 7

✓ 2. 8

✗ 3. 5

✗ 4. 6

Question ID : **441009351820**
Option 1 ID : **4410091373632**
Option 2 ID : **4410091373633**
Option 3 ID : **4410091373630**
Option 4 ID : **4410091373631**

Q. 9 Select the option in which the letter-clusters share the same relationship as that shared by the given pair of letter-clusters. Both the given letter clusters follow the same relationship.
DNX : GQA
GMS : JPV

Ans
1. SIW : UKZ
2. FPZ : DNW
3. AKU : CMW
4. BLV : EOY

Question ID : **441009351797**
Option 1 ID : **4410091373544**
Option 2 ID : **4410091373543**
Option 3 ID : **4410091373542**
Option 4 ID : **4410091373545**

Q. 10 In a certain code language, 'HUNT' is coded as '7591' and 'TEAM' is coded as '8274'. What is the code for 'T' in the given code language?

Ans
1. 1
2. 8
3. 2
4. 7

Question ID : **441009982009**
Option 1 ID : **4410093880503**
Option 2 ID : **4410093880505**
Option 3 ID : **4410093880504**
Option 4 ID : **4410093880502**

Q. 11 Each vowel in the word TREADING is changed to the letter following it in the English alphabetical order and each consonant is changed to the letter preceding it in the English alphabetical order. Which of the following letters will appear twice in the group of letters thus formed?

Ans
1. B
2. J
3. S
4. F

Question ID : **441009351845**
Option 1 ID : **4410091373732**
Option 2 ID : **4410091373730**
Option 3 ID : **4410091373733**
Option 4 ID : **4410091373731**

Q. Refer to the following letter and symbol series and answer the question that follows. Counting to be done from left to right only.

12

(Left) A Y Q * O & % M K E ! D R U ^ @ L M $ T Q (Right)

How many such symbols are there each of which is immediately preceded by a letter and also immediately followed by another symbol?

Ans
- ✗ 1. 0
- ✗ 2. 1
- ✗ 3. 3
- ✓ 4. 2

Question ID : **441009351279**
Option 1 ID : **4410091371481**
Option 2 ID : **4410091371480**
Option 3 ID : **4410091371479**
Option 4 ID : **4410091371478**

Q. D is B's mother. B is the brother of C's husband. C's husband is A's son. How is A related to D?

13

Ans
- ✓ 1. Husband
- ✗ 2. Father
- ✗ 3. Mother
- ✗ 4. Son

Question ID : **441009351855**
Option 1 ID : **4410091373771**
Option 2 ID : **4410091373772**
Option 3 ID : **4410091373773**
Option 4 ID : **4410091373770**

Q. In a certain code language, 'VICE' is coded as '5731' and 'COST' is coded as '2148'. What is the code for 'C' in the given code language?

14

Ans
- ✓ 1. 1
- ✗ 2. 2
- ✗ 3. 3
- ✗ 4. 4

Question ID : **441009982007**
Option 1 ID : **4410093880494**
Option 2 ID : **4410093880495**
Option 3 ID : **4410093880496**
Option 4 ID : **4410093880497**

QuickSarkari.com | WhatsApp Channel | Telegram: t.me/quick_sarkari

Q. 15 Mary ranked 15th from the top and 16th from the bottom in her class. How many students are there in the class?

Ans
- ✗ 1. 29
- ✗ 2. 32
- ✗ 3. 31
- ✓ 4. 30

Question ID : **441009351679**
Option 1 ID : **4410091373078**
Option 2 ID : **4410091373081**
Option 3 ID : **4410091373080**
Option 4 ID : **4410091373079**

Q. 16 Refer to the given letter series and answer the question that follows. Counting to be done from left to right only.

(Left) T B Y M R E S I C X Z O W A Q D F H G U K (Right)

How many such consonants are there, each of which is immediately preceded by a vowel and also immediately followed by a vowel?

Ans
- ✗ 1. 1
- ✗ 2. 3
- ✓ 3. 2
- ✗ 4. 4

Question ID : **441009351724**
Option 1 ID : **4410091373258**
Option 2 ID : **4410091373260**
Option 3 ID : **4410091373259**
Option 4 ID : **4410091373261**

Q. 17 Select the option that is related to the fifth letter-cluster in the same way as the second letter-cluster is related to the first letter-cluster and the fourth letter-cluster is related to the third letter-cluster.

COMPUTER : DPNQVUFS :: MODEM : NPEFN :: RADIO : ?

Ans
- ✗ 1. SBEEP
- ✓ 2. SBEJP
- ✗ 3. OIDAR
- ✗ 4. BESJP

Question ID : **441009351756**
Option 1 ID : **4410091373387**
Option 2 ID : **4410091373386**
Option 3 ID : **4410091373389**
Option 4 ID : **4410091373388**

QuickSarkari.com | WhatsApp Channel | Telegram: t.me/quick_sarkari

Q. Seven people, A, B, C, D, E, F and G, are sitting in a straight line, facing the north. Only two people sit between C and E. B sits second to the left of A. Only one person (D) sits to the left of G. C is an immediate neighbour of G. Who is sitting at the fourth position from the extreme right end of the line?

18

Ans

✗ 1. B

✗ 2. E

✓ 3. F

✗ 4. C

Question ID : **441009351753**
Option 1 ID : **4410091373376**
Option 2 ID : **4410091373377**
Option 3 ID : **4410091373375**
Option 4 ID : **4410091373374**

Q. Refer to the following letter and symbol series and answer the question that follows. Counting to be done from left to right only.

19

(Left) Q * D M A & R T $ L ^ @ # Q R O E K ! U D % T M A K (Right)

If all the letters are dropped from the series, which of the following will be fifth from the right?

Ans

✓ 1. ^

✗ 2. $

✗ 3. @

✗ 4. &

Question ID : **441009351278**
Option 1 ID : **4410091371474**
Option 2 ID : **4410091371476**
Option 3 ID : **4410091371475**
Option 4 ID : **4410091371477**

Q. Select the option in which the letter-clusters share the same relationship as that shared by the given pair of letter-clusters. Both the given pairs follow the same relationship.
EXP : IBT
YLQ : CPU

20

Ans

✓ 1. GLV : KPZ

✗ 2. CMW : EKP

✗ 3. AON : GQK

✗ 4. LVB : NTF

Question ID : **441009351798**
Option 1 ID : **4410091373548**
Option 2 ID : **4410091373546**
Option 3 ID : **4410091373547**
Option 4 ID : **4410091373549**

Section : **General intelligence and Reasoning Ability1**

Q. 1 Which two signs should be interchanged to make the following equation correct?
268 ÷ 240 + 80 − 16 × 8 = 68

Ans
✗ 1. + and ×
✗ 2. − and ×
✗ 3. ÷ and +
✓ 4. ÷ and −

Question ID : **441009350908**
Option 1 ID : **4410091369997**
Option 2 ID : **4410091369996**
Option 3 ID : **4410091369995**
Option 4 ID : **4410091369994**

Q. 2 In which of the following expressions will the expression 'H < J' be definitely true?

Ans
✗ 1. G < H ≥ I = J
✗ 2. H ≥ G > I < J
✓ 3. J = I ≥ G > H
✗ 4. H > G ≥ I = J

Question ID : **441009351888**
Option 1 ID : **4410091373902**
Option 2 ID : **4410091373905**
Option 3 ID : **4410091373904**
Option 4 ID : **4410091373903**

Q. 3 Based on the English alphabetical order, three of the following four letter-clusters are alike in a certain way and thus form a group. Which letter-cluster DOES NOT belong to that group? (Note: The odd one out is not based on the number of consonants/vowels or their position in the letter-cluster.)

Ans
✗ 1. GDB
✗ 2. VSQ
✗ 3. PMK
✓ 4. JGF

Question ID : **441009351807**
Option 1 ID : **4410091373585**
Option 2 ID : **4410091373584**
Option 3 ID : **4410091373582**
Option 4 ID : **4410091373583**

QuickSarkari.com | WhatsApp Channel | Telegram: t.me/quick_sarkari

Q. 4 Read the given statements and conclusions carefully. Identify which of the given conclusions is/are true based on the given statements.

Statements:
D ≥ A = C, A > E ≤ F

Conclusions:
I. D > E
II. F > C

Ans
✔ 1. Only conclusion I is true.

✘ 2. Only conclusion II is true.

✘ 3. Either conclusion I or II is true.

✘ 4. Both conclusions I and II are true.

Question ID : **441009351885**
Option 1 ID : **4410091373890**
Option 2 ID : **4410091373891**
Option 3 ID : **4410091373892**
Option 4 ID : **4410091373893**

Q. 5 Select the set in which the numbers are related in the same way as are the numbers of the following sets.
(NOTE: Operations should be performed on the whole numbers, without breaking down the numbers into their constituent digits. E.g. 13 – Operations on 13 such as adding to/subtracting from/multiplying with 13 can be performed. Breaking down 13 into 1 and 3 and then performing mathematical operations on 1 and 3 is not allowed.)

(171, 19, 9)
(128, 16, 8)

Ans
✘ 1. (123, 11, 6)

✘ 2. (200, 20, 9)

✔ 3. (144, 16, 9)

✘ 4. (95, 19, 3)

Question ID : **441009350890**
Option 1 ID : **4410091369922**
Option 2 ID : **4410091369924**
Option 3 ID : **4410091369925**
Option 4 ID : **4410091369923**

QuickSarkari.com | WhatsApp Channel | Telegram: t.me/quick_sarkari

Q. 6 In the following number-pairs, the second number is obtained by applying certain mathematical operation(s) to the first number. Which numbers should replace X and Y, so that the pattern followed by the two numbers on the left side of :: is the same as that on the right side of ::?
(NOTE: Operations should be performed on the whole numbers, without breaking down the numbers into their constituent digits. E.g. 13 – Operations on 13 such as adding to/subtracting from/multiplying with 13 can be performed. Breaking down 13 into 1 and 3 and then performing mathematical operations on 1 and 3 is not allowed.)

X : 21 :: 27 : Y

Ans
✔ 1. X = 15, Y = 33

✘ 2. X = 16, Y = 28

✘ 3. X = 15, Y = 35

✘ 4. X = 3, Y = 5

Question ID : **441009350887**
Option 1 ID : **4410091369913**
Option 2 ID : **4410091369912**
Option 3 ID : **4410091369910**
Option 4 ID : **4410091369911**

Q. 7 Select the set in which the numbers are related in the same way as are the numbers of the following sets.
(NOTE: Operations should be performed on the whole numbers, without breaking down the numbers into their constituent digits. E.g. 13 – Operations on 13 such as adding to/subtracting from/multiplying with 13 can be performed. Breaking down 13 into 1 and 3 and then performing mathematical operations on 1 and 3 is not allowed.)

(11, 154, 14)
(13, 156, 12)

Ans
✘ 1. (8, 148, 16)

✔ 2. (12, 192, 16)

✘ 3. (42, 346, 8)

✘ 4. (3, 71, 24)

Question ID : **441009350880**
Option 1 ID : **4410091369882**
Option 2 ID : **4410091369884**
Option 3 ID : **4410091369883**
Option 4 ID : **4410091369885**

QuickSarkari.com | WhatsApp Channel | Telegram: t.me/quick_sarkari

Q. 8 Read the given statements and conclusions carefully. Assuming that the information given in the statements is true, even if it appears to be at variance with commonly known facts, decide which of the given conclusions logically follow(s) from the statements.

Statements:
Some turnips are ships.
No ship is a bread.

Conclusions:
(I) Some turnips are breads.
(II) Some ships are turnips.

Ans
✔ 1. Only conclusion (II) follows.

✗ 2. Only conclusion (I) follows.

✗ 3. Both conclusions (I) and (II) follow.

✗ 4. Neither conclusion (I) nor (II) follows.

Question ID : **441009351260**
Option 1 ID : **4410091371403**
Option 2 ID : **4410091371402**
Option 3 ID : **4410091371405**
Option 4 ID : **4410091371404**

QuickSarkari.com | WhatsApp Channel | Telegram: t.me/quick_sarkari

Q. If the water source is placed along X-Y as shown in the figure, then which of
9 the following options will be the water reflection of the given figure?





Ans

✗ 1.



✓ 2.



✗ 3.



QuickSarkari.com | WhatsApp Channel | Telegram: t.me/quick_sarkari

✗ 4. 

Question ID : **441009351040**
Option 1 ID : **4410091370525**
Option 2 ID : **4410091370524**
Option 3 ID : **4410091370523**
Option 4 ID : **4410091370522**

Q. Select the number from among the given options that can replace the question mark (?) in the following series.
10 **67, 70, 76, 85, ?, 112**

Ans
✗ 1. 100
✓ 2. 97
✗ 3. 92
✗ 4. 103

Question ID : **441009350969**
Option 1 ID : **4410091370238**
Option 2 ID : **4410091370239**
Option 3 ID : **4410091370240**
Option 4 ID : **4410091370241**

Q. Each of the digits in the number 47198356 is arranged in the ascending order from left to right. Which of the following digits will be third from the left in the new number thus formed?
11

Ans
✗ 1. 3
✓ 2. 4
✗ 3. 5
✗ 4. 6

Question ID : **441009350849**
Option 1 ID : **4410091369758**
Option 2 ID : **4410091369759**
Option 3 ID : **4410091369760**
Option 4 ID : **4410091369761**

QuickSarkari.com | WhatsApp Channel | Telegram: t.me/quick_sarkari

Q. If '+' means '–', '–' means '÷', '×' means '+', '÷' means '×', what will come in 12 place of the question mark (?) in the following equation?
268 + 15 ÷ 224 – 8 × 182 = ?

Ans
1. 40
2. 30
3. 32
4. 42

Question ID : **441009350917**
Option 1 ID : **4410091370032**
Option 2 ID : **4410091370031**
Option 3 ID : **4410091370030**
Option 4 ID : **4410091370033**

Q. Based on the English alphabetical order, three of the following four letter-cluster pairs are alike in a certain way and thus form a group. Which letter-cluster pair DOES NOT belong to that group? 13
(Note: The odd one out is not based on the number of consonants/vowels or their position in the letter-cluster.)

Ans
1. KP - RU
2. EL - TY
3. MR - TW
4. OT - VY

Question ID : **441009351580**
Option 1 ID : **4410091372684**
Option 2 ID : **4410091372682**
Option 3 ID : **4410091372685**
Option 4 ID : **4410091372683**

Q. If '+' means '÷', '–' means '+', '×' means '–' and '÷' means '×', then what will be 14 the value of the following expression?
[{(20 × 16) − (2 ÷ 3)} + (3 − 2)] ÷ 1

Ans
1. 8
2. 2
3. 1
4. 4

Question ID : **441009350973**
Option 1 ID : **4410091370257**
Option 2 ID : **4410091370255**
Option 3 ID : **4410091370254**
Option 4 ID : **4410091370256**

Q. What should come in place of the question mark (?) in the given series?
15 93 79 66 ? 43

Ans
1. 51
2. 54
3. 53
4. 52

Question ID : **441009350961**
Option 1 ID : **4410091370206**
Option 2 ID : **4410091370209**
Option 3 ID : **4410091370208**
Option 4 ID : **4410091370207**

Q. Read the given statements and conclusions carefully. Assuming that the
16 information given in the statements is true, even if it appears to be at variance with commonly known facts, decide which of the given conclusions logically follow(s) from the statements.

Statements:
All wallets are corianders.
All foams are corianders.

Conclusions:
(I) Some wallets are foams.
(II) Some corianders are foams.

Ans
1. Only conclusion (I) follows.
2. Neither conclusion (I) nor (II) follows.
3. Only conclusion (II) follows.
4. Both conclusions (I) and (II) follow.

Question ID : **441009351261**
Option 1 ID : **4410091371406**
Option 2 ID : **4410091371408**
Option 3 ID : **4410091371407**
Option 4 ID : **4410091371409**

Q. If '+' means '÷', '–' means '+', '×' means '–' and '÷' means '×', then, what will be
17 the value of the following expression?

[{(20 × 16) − (5 ÷ 2))} + (3 − 4)] ÷ 5

Ans
1. 15
2. 10
3. 5
4. 20

Question ID : **441009350974**
Option 1 ID : **4410091370260**
Option 2 ID : **4410091370259**
Option 3 ID : **4410091370258**
Option 4 ID : **4410091370261**

Q. Identify the figure given in the options which when put in place of the 18 question mark (?) will logically complete the series.

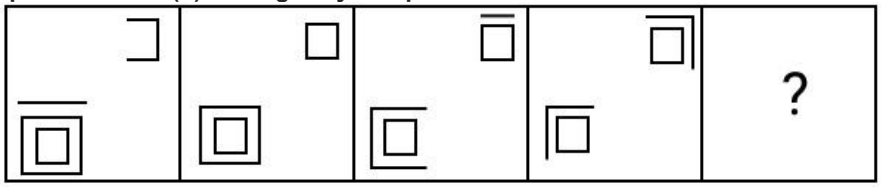

Ans

✗ 1.

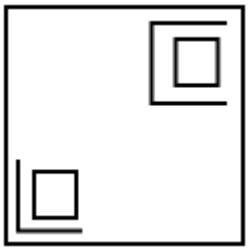

✓ 2.

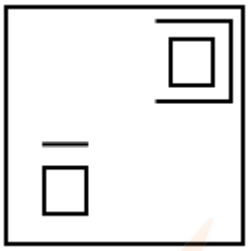

✗ 3.



✗ 4.

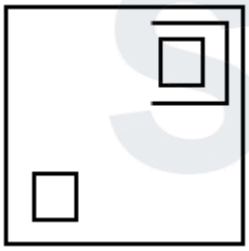

Question ID : **441009351046**
Option 1 ID : **4410091370547**
Option 2 ID : **4410091370546**
Option 3 ID : **4410091370549**
Option 4 ID : **4410091370548**

QuickSarkari.com | WhatsApp Channel | Telegram: t.me/quick_sarkari

Q. What should come in place of the question mark (?) in the given series?
19 8, 20, 84, 676, ?

Ans
✗ 1. 10864
✓ 2. 10820
✗ 3. 10852
✗ 4. 10800

Question ID : **441009350967**
Option 1 ID : **4410091370233**
Option 2 ID : **4410091370231**
Option 3 ID : **4410091370232**
Option 4 ID : **4410091370230**

Q. Based on the English alphabetical order, three of the following four letter-clusters are alike in a certain way and thus form a group. Which letter-cluster DOES NOT belong to that group?
20 (Note: The odd one out is not based on the number of consonants/vowels or their position in the letter-cluster.)

Ans
✓ 1. DBE
✗ 2. PRU
✗ 3. HJM
✗ 4. TVY

Question ID : **441009351769**
Option 1 ID : **4410091373439**
Option 2 ID : **4410091373440**
Option 3 ID : **4410091373441**
Option 4 ID : **4410091373438**

Section : **General Awareness**

Q. On 19 June 2024, the Union Cabinet approved the development of a ₹76,200 crore all-weather greenfield deep-draft major port at which location in Maharashtra?
1

Ans
✗ 1. Tarapur
✓ 2. Vadhavan
✗ 3. Dharamtar
✗ 4. Jaigad

Question ID : **441009394041**
Option 1 ID : **4410091541657**
Option 2 ID : **4410091541660**
Option 3 ID : **4410091541658**
Option 4 ID : **4410091541659**

Q. In June 2024, the Central Government announced how many additional houses under the Pradhan Mantri Awas Yojana (PMAY)?

Ans
1. 3.5 crore
2. 3 crore
3. 1.5 crore
4. 2 crore

Question ID : **441009394037**
Option 1 ID : **4410091541644**
Option 2 ID : **4410091541643**
Option 3 ID : **4410091541641**
Option 4 ID : **4410091541642**

Q. Which of the following schemes are operated by the Ministry of Rural Development?

1. Mahatma Gandhi National Rural Employment Guarantee Act (MGNREGA)
2. Pradhan Mantri Awas Yojana – Gramin (PMAY-G)
3. National Rural Livelihoods Mission (NRLM)
4. Pradhan Mantri Fasal Bima Yojana (PMFBY)

Ans
1. All 1, 2, 3 and 4
2. 1 and 2 only
3. 2 and 3 only
4. 1, 2 and 3 only

Question ID : **441009394092**
Option 1 ID : **4410091541864**
Option 2 ID : **4410091541861**
Option 3 ID : **4410091541863**
Option 4 ID : **4410091541862**

Q. In which of the following years was the 'Satyagraha Ashram' founded by Mahatma Gandhi ?

Ans
1. 1915
2. 1925
3. 1905
4. 1910

Question ID : **441009393529**
Option 1 ID : **4410091539611**
Option 2 ID : **4410091539612**
Option 3 ID : **4410091539609**
Option 4 ID : **4410091539610**

Q. In which of the following years was the Lahore Resolution demanding a separate nation for Muslims passed?

Ans
- ✗ 1. 1947
- ✓ 2. 1940
- ✗ 3. 1945
- ✗ 4. 1942

Question ID : **441009393549**
Option 1 ID : **4410091539692**
Option 2 ID : **4410091539689**
Option 3 ID : **4410091539691**
Option 4 ID : **4410091539690**

Q. In which of the following cities were the 'Round Table Conferences' held?

Ans
- ✓ 1. London
- ✗ 2. Lahore
- ✗ 3. Delhi
- ✗ 4. Mumbai

Question ID : **441009393550**
Option 1 ID : **4410091539694**
Option 2 ID : **4410091539695**
Option 3 ID : **4410091539693**
Option 4 ID : **4410091539696**

Q. As of October 2021, how many nationalised banks are working in India?

Ans
- ✓ 1. 12
- ✗ 2. 18
- ✗ 3. 15
- ✗ 4. 10

Question ID : **441009394235**
Option 1 ID : **4410091542434**
Option 2 ID : **4410091542436**
Option 3 ID : **4410091542435**
Option 4 ID : **4410091542433**

QuickSarkari.com | WhatsApp Channel | Telegram: t.me/quick_sarkari

Q. Who was the oldest athlete to represent India at Paris 2024?
8

Ans
✗ 1. Vikash Singh

✓ 2. Rohan Bopanna

✗ 3. Akshdeep Singh

✗ 4. Neeraj Chopra

Question ID : **441009394015**
Option 1 ID : **4410091541553**
Option 2 ID : **4410091541556**
Option 3 ID : **4410091541554**
Option 4 ID : **4410091541555**

Q. Which of the following states extended its hockey sponsorship until 2036?
9

Ans
✓ 1. Odisha

✗ 2. Bihar

✗ 3. Chhattisgarh

✗ 4. West Bengal

Question ID : **441009394001**
Option 1 ID : **4410091541500**
Option 2 ID : **4410091541498**
Option 3 ID : **4410091541499**
Option 4 ID : **4410091541497**

Q. On which of the following dates did India attain independence from the British rule?
10

Ans
✗ 1. January 25, 1950

✗ 2. January 26, 1950

✗ 3. August 14, 1947

✓ 4. August 15, 1947

Question ID : **441009393548**
Option 1 ID : **4410091539688**
Option 2 ID : **4410091539686**
Option 3 ID : **4410091539687**
Option 4 ID : **4410091539685**

QuickSarkari.com | WhatsApp Channel | Telegram: t.me/quick_sarkari

Q. Who became the first woman Law Secretary of India in 2025, marking a historic milestone in the Ministry of Law and Justice?

Ans

✗ 1. Pinky Anand

✗ 2. Indu Malhotra

✓ 3. Anju Rathi Rana

✗ 4. Annpurna Devi

Question ID : **441009393794**
Option 1 ID : **4410091540670**
Option 2 ID : **4410091540671**
Option 3 ID : **4410091540669**
Option 4 ID : **4410091540672**

Q. Which of the following institutions does NOT offer microfinance?

Ans

✗ 1. Commercial banks

✓ 2. EXIM Bank

✗ 3. Non-governmental organisations

✗ 4. Credit unions

Question ID : **441009394223**
Option 1 ID : **4410091542386**
Option 2 ID : **4410091542388**
Option 3 ID : **4410091542387**
Option 4 ID : **4410091542385**

Q. Which platform, in collaboration with the Ministry of Agriculture and Farmers Welfare, launched a digital exhibition titled 'Millet: Seeds of Change' in May 2024?

Ans

✗ 1. Life of Pix

✗ 2. Adobe Stock

✗ 3. Burst by Shopify

✓ 4. Google Arts and Culture

Question ID : **441009394048**
Option 1 ID : **4410091541688**
Option 2 ID : **4410091541685**
Option 3 ID : **4410091541687**
Option 4 ID : **4410091541686**

Q. Who captained the Indian men's hockey team at the 2024 Paris Olympics?
14

Ans
- ✗ 1. Jarmanpreet Singh
- ✗ 2. Surender Kumar
- ✓ 3. Harmanpreet Singh
- ✗ 4. Amit Rohidas

Question ID : **441009394017**
Option 1 ID : **4410091541564**
Option 2 ID : **4410091541563**
Option 3 ID : **4410091541561**
Option 4 ID : **4410091541562**

Q. Suppose a production function is represented as q=f(L,K). What does 'f'
15 represent in this context?

Ans
- ✗ 1. A fixed cost function used to calculate capital depreciation over time
- ✓ 2. A mathematical relationship that determines how inputs are converted into output
- ✗ 3. A constant return to scale that applies to all production processes equally
- ✗ 4. A fixed numerical value added to labour and capital to get total production

Question ID : **441009394165**
Option 1 ID : **4410091542156**
Option 2 ID : **4410091542155**
Option 3 ID : **4410091542154**
Option 4 ID : **4410091542153**

Q. In which year was the Committee of Parliament on Official Language
16 constituted?

Ans
- ✗ 1. 1973
- ✓ 2. 1976
- ✗ 3. 1980
- ✗ 4. 1970

Question ID : **441009398799**
Option 1 ID : **4410091560651**
Option 2 ID : **4410091560652**
Option 3 ID : **4410091560653**
Option 4 ID : **4410091560650**

QuickSarkari.com | WhatsApp Channel | Telegram: t.me/quick_sarkari

Q. What is the primary objective of the Pradhan Mantri Jan Dhan Yojana (PMJDY)?

Ans
✔ 1. To promote financial inclusion by ensuring access to bank accounts, insurance and credit

✘ 2. To provide subsidies for agricultural inputs

✘ 3. To enhance infrastructure in rural areas

✘ 4. To create a single national database for direct benefit transfer

Question ID : **441009394114**
Option 1 ID : **4410091541950**
Option 2 ID : **4410091541949**
Option 3 ID : **4410091541951**
Option 4 ID : **4410091541952**

Q. Which Schedule of the Indian Constitution deals with the official languages of India?

Ans
✔ 1. Eighth

✘ 2. Tenth

✘ 3. Fifth

✘ 4. Seventh

Question ID : **441009398790**
Option 1 ID : **4410091560616**
Option 2 ID : **4410091560617**
Option 3 ID : **4410091560614**
Option 4 ID : **4410091560615**

Q. परिकल्पनात्मक शेष (speculative balances) रखने वाले लोग बॉन्ड की कीमतों के बारे में अपनी प्रत्याशा का उपयोग कैसे करते हैं?

Ans
✘ 1. वे बॉन्ड के बजाय शेयरों में निवेश करते हैं।

✘ 2. वे बॉन्ड तब बेचते हैं जब उनकी कीमतें कम होती हैं।

✔ 3. वे बॉन्ड तब खरीदते हैं जब उनकी कीमतें कम होती हैं।

✘ 4. वे धन का उपयोग रोज़मर्रा के खर्चों के लिए करते हैं।

Question ID : **441009394195**
Option 1 ID : **4410091542275**
Option 2 ID : **4410091542274**
Option 3 ID : **4410091542273**
Option 4 ID : **4410091542276**

Q. Which subsidiary company successfully launched India's first military-grade 20 geospatial satellite, built entirely by the private sector, on 7 April 2024?

Ans

✔ 1. Tata Advanced Systems Ltd.

✘ 2. Blue Sky Analytics Ltd.

✘ 3. Astrome Technologies Pvt. Ltd.

✘ 4. Spacezone India Private Ltd.

Question ID : **441009394056**
Option 1 ID : **4410091541718**
Option 2 ID : **4410091541719**
Option 3 ID : **4410091541720**
Option 4 ID : **4410091541717**

Section : **General Awareness1**

Q. What happens when baking soda is heated? 1

Ans

✘ 1. $2NaOH \xrightarrow{Heat} 2NaO + H_2O$

✘ 2. $2NaHCO_3 \xrightarrow{Heat} 2NaCO_2 + H_2O + CO$

✔ 3. $2NaHCO_3 \xrightarrow{Heat} Na_2CO_3 + H_2O + CO_2$

✘ 4. $2NaOH \xrightarrow{Heat} Na + H_2O + NaO$

Question ID : **441009399005**
Option 1 ID : **4410091561475**
Option 2 ID : **4410091561476**
Option 3 ID : **4410091561474**
Option 4 ID : **4410091561477**

Q. Which of the following is INCORRECT about the dismissal of council of 2 ministers of Union?

Ans

✘ 1. The President can dismiss the Council of Ministers if it loses the confidence of the Lok Sabha.

✘ 2. The entire Council of Ministers resigns if the Prime Minister resigns.

✘ 3. The Prime Minister can ask a minister to resign or advise the President to dismiss them.

✔ 4. The Council of Ministers can be dismissed collectively by a vote of no-confidence in the Rajya Sabha.

Question ID : **441009393644**
Option 1 ID : **4410091540069**
Option 2 ID : **4410091540071**
Option 3 ID : **4410091540070**
Option 4 ID : **4410091540072**

Q. What controls the genetic traits of living organisms?
3

Ans
- ✗ 1. Food that we eat
- ✓ 2. Proteins made by DNA
- ✗ 3. Lifestyle
- ✗ 4. Vitamins that we consume

Question ID : **441009398993**
Option 1 ID : **4410091561429**
Option 2 ID : **4410091561427**
Option 3 ID : **4410091561428**
Option 4 ID : **4410091561426**

Q. According to the Ministry of Consumer Affairs, Food and Public Distribution, Government of India (as of October 2022), select the most appropriate option with respect to the correctness of the following statements.
4 a) India emerges as the world's largest producer and consumer of sugar.
b) India emerges as the world's second largest exporter of sugar.

Ans
- ✗ 1. Only b is correct.
- ✗ 2. Both a and b are incorrect.
- ✓ 3. Both a and b are correct.
- ✗ 4. Only a is correct.

Question ID : **441009399237**
Option 1 ID : **4410091562405**
Option 2 ID : **4410091562403**
Option 3 ID : **4410091562402**
Option 4 ID : **4410091562404**

Q. The Rath Yatra procession takes place in which of the following religious places?
5

Ans
- ✗ 1. Badrinath, Uttarakhand
- ✓ 2. Puri, Odisha
- ✗ 3. Kedarnath, Uttarakhand
- ✗ 4. Rameshwaram, Tamil Nadu

Question ID : **441009398902**
Option 1 ID : **4410091561064**
Option 2 ID : **4410091561065**
Option 3 ID : **4410091561062**
Option 4 ID : **4410091561063**

QuickSarkari.com | WhatsApp Channel | Telegram: t.me/quick_sarkari

Q. As of December 2022, the Department of Official Language is under which ministry in the Government of India?

Ans
- ✗ 1. Ministry of Information and Broadcasting
- ✓ 2. Ministry of Home Affairs
- ✗ 3. Ministry of Culture
- ✗ 4. Ministry of Education

Question ID : **441009398884**
Option 1 ID : **4410091560990**
Option 2 ID : **4410091560991**
Option 3 ID : **4410091560993**
Option 4 ID : **4410091560992**

Q. How many nutrients are at least essential for plants optimal growth and development?

Ans
- ✗ 1. 10
- ✓ 2. 16
- ✗ 3. 8
- ✗ 4. 5

Question ID : **441009399031**
Option 1 ID : **4410091561579**
Option 2 ID : **4410091561580**
Option 3 ID : **4410091561581**
Option 4 ID : **4410091561578**

Q. Which of the following statements are correct?

A. Sawdust is used to adulterate coriander powder.
B. Milk can be adulterated with urea, detergent and starch.
C. There is no method to detect an adulterant in food products.
D. Packaged food products are exclusively adulteration-free.

Ans
- ✗ 1. Only C and D
- ✓ 2. Only A and B
- ✗ 3. Only A and D
- ✗ 4. Only B and C

Question ID : **441009399007**
Option 1 ID : **4410091561485**
Option 2 ID : **4410091561482**
Option 3 ID : **4410091561484**
Option 4 ID : **4410091561483**

Q. Which region of India is known for its extensive mangrove forests and the largest tidal delta in the world?

Ans
- ✗ 1. Kerala Backwaters
- ✗ 2. The Coromandel Coast
- ✗ 3. Konkan Coast
- ✓ 4. The Sundarbans

Question ID : **441009399220**
Option 1 ID : **4410091562334**
Option 2 ID : **4410091562336**
Option 3 ID : **4410091562337**
Option 4 ID : **4410091562335**

Q. Which of the following, acts as the President of India, in case of a vacancy in the office of both President and Vice President?

Ans
- ✗ 1. Prime Minister
- ✗ 2. Speaker of Lok Sabha
- ✗ 3. Deputy Chairman of Rajya Sabha
- ✓ 4. Chief Justice of India

Question ID : **441009393715**
Option 1 ID : **4410091540353**
Option 2 ID : **4410091540355**
Option 3 ID : **4410091540356**
Option 4 ID : **4410091540354**

Q. Which of the following statements are correct?

A. Mettur project is located on the Periyar river.
B. Nagarjuna Sagar project is located on the Krishna river.
C. Rana Pratap Sagar project is located on the Chambal river.

Ans
- ✗ 1. Only A and B are correct.
- ✗ 2. A, B and C all are correct.
- ✓ 3. Only B and C are correct.
- ✗ 4. Only A and C are correct.

Question ID : **441009399240**
Option 1 ID : **4410091562414**
Option 2 ID : **4410091562417**
Option 3 ID : **4410091562416**
Option 4 ID : **4410091562415**

Q. Who proposed the double helical model of DNA?
12

Ans
- ✗ 1. HG Khurana
- ✗ 2. Mendel
- ✓ 3. Watson and Crick
- ✗ 4. Miller

Question ID : **441009399036**
Option 1 ID : **4410091561601**
Option 2 ID : **4410091561599**
Option 3 ID : **4410091561598**
Option 4 ID : **4410091561600**

Q. Sholas are temperate forests found in which of the following physiographical divisions of India?
13

Ans
- ✗ 1. The Himalayas
- ✓ 2. Western Ghats
- ✗ 3. Garo and Khasi Hills
- ✗ 4. Eastern Ghats

Question ID : **441009399217**
Option 1 ID : **4410091562324**
Option 2 ID : **4410091562322**
Option 3 ID : **4410091562325**
Option 4 ID : **4410091562323**

Q. The Central Institute of Hindi (Kendriya Hindi Sansthan) comes under the jurisdiction of which Indian Ministry?
14

Ans
- ✗ 1. Ministry of Home Affairs
- ✗ 2. Ministry of Communications and Information Technology
- ✓ 3. Ministry of Education
- ✗ 4. Ministry of Culture

Question ID : **441009398887**
Option 1 ID : **4410091561002**
Option 2 ID : **4410091561005**
Option 3 ID : **4410091561004**
Option 4 ID : **4410091561003**

QuickSarkari.com | WhatsApp Channel | Telegram: t.me/quick_sarkari

Q. Which of the following Articles of Indian Constitution authorises the Indian President to promulgate the ordinances?
15

Ans
- ✔ 1. 123
- ✘ 2. 127
- ✘ 3. 125
- ✘ 4. 129

Question ID : **441009393681**
Option 1 ID : **4410091540217**
Option 2 ID : **4410091540219**
Option 3 ID : **4410091540218**
Option 4 ID : **4410091540220**

Q. Who was entrusted with the responsibility of population statistics and implementation of the Registration of Births and Deaths Act, 1969?
16

Ans
- ✘ 1. Ministry of Home Affairs
- ✘ 2. Department of Social Welfare
- ✔ 3. Registrar General and Census Commissioner, India
- ✘ 4. Ministry of Statistics and Programme Implementation

Question ID : **441009399203**
Option 1 ID : **4410091562266**
Option 2 ID : **4410091562269**
Option 3 ID : **4410091562267**
Option 4 ID : **4410091562268**

Q. Who said that India is a quasi-federal state?
17

Ans
- ✔ 1. KC Wheare
- ✘ 2. Lord Bryee
- ✘ 3. Ivor Jennings
- ✘ 4. Harold Laski

Question ID : **441009393713**
Option 1 ID : **4410091540346**
Option 2 ID : **4410091540348**
Option 3 ID : **4410091540347**
Option 4 ID : **4410091540345**

QuickSarkari.com | WhatsApp Channel | Telegram: t.me/quick_sarkari

Q. The space where the worshippers perform collective rituals in a Nagara style
18 of temple is known as _____.

Ans
- ✗ 1. Garbhagriha
- ✗ 2. Amalaka
- ✓ 3. Mandapa
- ✗ 4. Shikhara

Question ID : **441009398877**
Option 1 ID : **4410091560964**
Option 2 ID : **4410091560965**
Option 3 ID : **4410091560962**
Option 4 ID : **4410091560963**

Q. Which of the following was the main aim of C Rajagopalachari formula of
19 1944?

Ans
- ✓ 1. Unity between Muslim league and Indian National Congress
- ✗ 2. Cooperation with British in second world war
- ✗ 3. To establish communal harmony
- ✗ 4. Division of electoral seats

Question ID : **441009393491**
Option 1 ID : **4410091539457**
Option 2 ID : **4410091539460**
Option 3 ID : **4410091539458**
Option 4 ID : **4410091539459**

Q. How many number of High Court of Judicature are in India?
20

Ans
- ✗ 1. 22
- ✗ 2. 21
- ✓ 3. 25
- ✗ 4. 23

Question ID : **441009393708**
Option 1 ID : **4410091540326**
Option 2 ID : **4410091540325**
Option 3 ID : **4410091540328**
Option 4 ID : **4410091540327**

Section : **Arithmetical and Numerical Ability**

Q. 1 There are only two candidates contesting an election, a person who got 35% votes lost by 930 votes. Assuming that there were no invalid votes, the total number of votes casted are:

Ans
✔ 1. 3100
✘ 2. 3200
✘ 3. 3000
✘ 4. 3300

Question ID : **441009373739**
Option 1 ID : **4410091460542**
Option 2 ID : **4410091460543**
Option 3 ID : **4410091460541**
Option 4 ID : **4410091460544**

Q. 2 The ratio of milk and water in a 28-litre mixture is 5 : 2. Find the quantity (in litres) of water to be added to the mixture in order to make this ratio 1 : 1.

Ans
✘ 1. 3
✘ 2. 22
✘ 3. 9
✔ 4. 12

Question ID : **441009373853**
Option 1 ID : **4410091460999**
Option 2 ID : **4410091461000**
Option 3 ID : **4410091460998**
Option 4 ID : **4410091460997**

Q. 3 1525 people visited an exhibition on Tuesday, whereas 1830 people visited it on Wednesday. The percentage increase in the number of people visiting the exhibition on Wednesday compared to those who visited it on Tuesday was _____%.

Ans
✘ 1. 17.67
✔ 2. 20
✘ 3. 21
✘ 4. 16.67

Question ID : **441009374284**
Option 1 ID : **4410091462724**
Option 2 ID : **4410091462721**
Option 3 ID : **4410091462722**
Option 4 ID : **4410091462723**

Q. Two candidates contested a parliamentary election. The winning candidate secured 57% of the total votes polled and won by a margin of 42,000 votes. If all votes were valid, what was the total number of votes polled? 4

Ans
✗ 1. 4,50,000
✓ 2. 3,00,000
✗ 3. 3,50,000
✗ 4. 4,60,000

Question ID : **441009373722**
Option 1 ID : **4410091460475**
Option 2 ID : **4410091460473**
Option 3 ID : **4410091460474**
Option 4 ID : **4410091460476**

Q. Stephan invested ₹24,000 in a fixed deposit scheme for 2 years at a compound interest rate of 10% per annum, compounded annually. How much amount will he receive on maturity? 5

Ans
✗ 1. ₹26,400
✓ 2. ₹29,040
✗ 3. ₹5,040
✗ 4. ₹2,400

Question ID : **441009374451**
Option 1 ID : **4410091463389**
Option 2 ID : **4410091463390**
Option 3 ID : **4410091463391**
Option 4 ID : **4410091463392**

Q. The number of prime numbers lying between 464 and 473, both included, is: 6

Ans
✗ 1. Five
✗ 2. Four
✗ 3. Three
✓ 4. One

Question ID : **441009374091**
Option 1 ID : **4410091461951**
Option 2 ID : **4410091461952**
Option 3 ID : **4410091461950**
Option 4 ID : **4410091461949**

Q. 7 **Study the given table and answer the question that follows.**

The given table shows the number of students who participated in football and cricket matches from four different schools.

School	Number of students participated in	
	Football	Cricket
A	114	266
B	207	333
C	240	400
D	275	440

The total number of students from schools A, B and D who participated in cricket matches was how many more than the total number of students from schools B, C and D who participated in football matches?

Ans
✔ 1. 317
✘ 2. 285
✘ 3. 250
✘ 4. 359

Question ID : **441009374330**
Option 1 ID : **4410091462905**
Option 2 ID : **4410091462907**
Option 3 ID : **4410091462906**
Option 4 ID : **4410091462908**

Q. 8 If $\sqrt{3^n} = 729$, then the value of n is:

Ans
✘ 1. 4
✔ 2. 12
✘ 3. 6
✘ 4. 2

Question ID : **441009374515**
Option 1 ID : **4410091463646**
Option 2 ID : **4410091463648**
Option 3 ID : **4410091463647**
Option 4 ID : **4410091463645**

QuickSarkari.com | WhatsApp Channel | Telegram: t.me/quick_sarkari

Q. Find the principal that amounts to ₹321 in one year at 7% per annum
9 compound interest, compounded annually.

Ans
✗ 1. ₹298

✗ 2. ₹345

✓ 3. ₹300

✗ 4. ₹343

Question ID : **441009374446**
Option 1 ID : **4410091463369**
Option 2 ID : **4410091463372**
Option 3 ID : **4410091463370**
Option 4 ID : **4410091463371**

Q. The population of a city increased by 68,486 during a year. If the population
10 of the city at the beginning of that year was 3,54,981, what was its population at the end of that year?

Ans
✗ 1. 4,23,487

✗ 2. 4,23,437

✗ 3. 4,23,457

✓ 4. 4,23,467

Question ID : **441009374099**
Option 1 ID : **4410091461983**
Option 2 ID : **4410091461984**
Option 3 ID : **4410091461982**
Option 4 ID : **4410091461981**

Q. Mohan's salary is ₹10,000 per month. He spends ₹5.000 on house rent,
11 ₹3.000 on bills and the rest of the amount is his monthly savings. Find his savings (in ₹) in a year, if in the month of his birthday he spent his complete monthly saving for birthday celebration.

Ans
✗ 1. 18,000

✓ 2. 22,000

✗ 3. 20,000

✗ 4. 24,000

Question ID : **441009374244**
Option 1 ID : **4410091462564**
Option 2 ID : **4410091462561**
Option 3 ID : **4410091462563**
Option 4 ID : **4410091462562**

Q. The average of the squares of the first 19 natural numbers is:
12

Ans
✔ 1. 130

✗ 2. 129

✗ 3. 132

✗ 4. 131

Question ID : **441009374298**
Option 1 ID : **4410091462777**
Option 2 ID : **4410091462779**
Option 3 ID : **4410091462780**
Option 4 ID : **4410091462778**

Q. Find the simple interest on ₹4,500 for 3 years 5 months at the rate of 8% per annum.
13

Ans
✗ 1. ₹1,203

✗ 2. ₹1,330

✗ 3. ₹1,302

✔ 4. ₹1,230

Question ID : **441009374386**
Option 1 ID : **4410091463131**
Option 2 ID : **4410091463132**
Option 3 ID : **4410091463130**
Option 4 ID : **4410091463129**

Q. The average weight of a family of five members (in kg) whose weights are 40 kg, 49 kg, 56 kg, 63 kg and 38 kg is:
14

Ans
✔ 1. 49.2

✗ 2. 48.2

✗ 3. 50.2

✗ 4. 51.2

Question ID : **441009374363**
Option 1 ID : **4410091463037**
Option 2 ID : **4410091463039**
Option 3 ID : **4410091463038**
Option 4 ID : **4410091463040**

QuickSarkari.com | WhatsApp Channel | Telegram: t.me/quick_sarkari

Q. 15 The simple interest on a certain sum for 3 years at 19% per a
less than the simple interest on the same sum for 7 years at th
Find the sum.

Ans
✗ 1. ₹26,000
✓ 2. ₹25,000
✗ 3. ₹23,000
✗ 4. ₹24,000

Question ID : **441009374391**
Option 1 ID : **4410091463152**
Option 2 ID : **4410091463151**
Option 3 ID : **4410091463149**
Option 4 ID : **4410091463150**

Q. 16 The average (rounded off to two decimal place) of the squares of the first 18 natural numbers is:

Ans
✗ 1. 119.17
✗ 2. 116.17
✓ 3. 117.17
✗ 4. 118.17

Question ID : **441009374299**
Option 1 ID : **4410091462784**
Option 2 ID : **4410091462783**
Option 3 ID : **4410091462781**
Option 4 ID : **4410091462782**

Q. 17 A vendor sold 10 chocolates for ₹1, making a profit of 30%. How many chocolates did he buy for ₹1?

Ans
✗ 1. 17
✗ 2. 15
✗ 3. 19
✓ 4. 13

Question ID : **441009374226**
Option 1 ID : **4410091462491**
Option 2 ID : **4410091462490**
Option 3 ID : **4410091462492**
Option 4 ID : **4410091462489**

QuickSarkari.com | WhatsApp Channel | Telegram: t.me/quick_sarkari

Q. The percentage profit earned by selling an article for ₹1,840 is equal to the 18 percentage loss incurred by selling the same article for ₹1,460. At what price should the article be sold (in ₹) to make 20% profit?

Ans
✔ 1. 1,980

✘ 2. 1,990

✘ 3. 1,970

✘ 4. 1,960

Question ID : **441009374413**
Option 1 ID : **4410091463239**
Option 2 ID : **4410091463240**
Option 3 ID : **4410091463238**
Option 4 ID : **4410091463237**

Q. When 0.888888888……. is converted into a fraction, the result is: 19

Ans
✘ 1. $\frac{8}{90}$

✘ 2. $\frac{9}{11}$

✔ 3. $\frac{8}{9}$

✘ 4. $\frac{9}{10}$

Question ID : **441009374504**
Option 1 ID : **4410091463601**
Option 2 ID : **4410091463603**
Option 3 ID : **4410091463602**
Option 4 ID : **4410091463604**

QuickSarkari.com | WhatsApp Channel | Telegram: t.me/quick_sarkari

Q. 20 **Study the given table and answer the question that follows.**

The following table gives the sale of different types of batteries (in lakhs) manufactured by a company during the years 1992 to 1994.

Years	Type of batteries			
	AA	2AA	3AA	5AA
1992	268	278	294	413
1993	299	253	288	309
1994	320	289	270	325

What was the average annual sale (in lakhs) of all types of batteries taken together that were manufactured by the company during the years 1992 to 1994?

Ans
- ✗ 1. 995
- ✗ 2. 1078
- ✓ 3. 1202
- ✗ 4. 1353

Question ID : **441009374331**
Option 1 ID : **4410091462912**
Option 2 ID : **4410091462910**
Option 3 ID : **4410091462911**
Option 4 ID : **4410091462909**

Section : **Arithmetical and Numerical Ability1**

Q. 1 **The outer dimensions of an open box are 30 cm, 40 cm, and 20 cm. Its thickness is 2 cm. If 1 cm^3 of the metal used in the box weighs 0.25 gm, then the weight of the box is:**

Ans
- ✗ 1. 1.932 kg
- ✗ 2. 1.538 kg
- ✓ 3. 1.788 kg
- ✗ 4. 1.628 kg

Question ID : **441009374627**
Option 1 ID : **4410091464096**
Option 2 ID : **4410091464093**
Option 3 ID : **4410091464095**
Option 4 ID : **4410091464094**

Q. 2 Bablu walks to his office 2 km away from home. In the morning he covers the distance in 1.5 hours whereas, while returning home in the evening, he takes 60 more minutes to cover the same distance. Find his average speed (in km/hr) during the two-way journey.

Ans
1. 2
2. 1
3. 2.5
4. 1.5

Question ID : **441009374011**
Option 1 ID : **4410091461631**
Option 2 ID : **4410091461629**
Option 3 ID : **4410091461632**
Option 4 ID : **4410091461630**

Q. 3 Pipes A and B together can fill an empty tank in $6\frac{2}{3}$ minutes. then the time (in minutes) in which B alone would fill two – th

Ans
1. 12
2. 15
3. 10
4. 8

Question ID : **441009374414**
Option 1 ID : **4410091463243**
Option 2 ID : **4410091463244**
Option 3 ID : **4410091463241**
Option 4 ID : **4410091463242**

Q. 4 An amount of ₹894 is divided among three people in the ratio of 4 : 19 : 7. The difference between the largest and the smallest shares in the distribution is:

Ans
1. 360
2. 447
3. 488
4. 401

Question ID : **441009373952**
Option 1 ID : **4410091461395**
Option 2 ID : **4410091461393**
Option 3 ID : **4410091461394**
Option 4 ID : **4410091461396**

QuickSarkari.com | WhatsApp Channel | Telegram: t.me/quick_sarkari

Q. 5 Each side of a square is 100 m. There are flower beds at the (in the form of a quadrant of radius 14 m. The area of the rem $\left(\text{Take } \pi = \frac{22}{7}\right)$

Ans
1. $8,394\ m^2$
2. $9,344\ m^2$
3. $9,394\ m^2$
4. $9,384\ m^2$

Question ID : **441009374556**
Option 1 ID : **4410091463812**
Option 2 ID : **4410091463809**
Option 3 ID : **4410091463811**
Option 4 ID : **4410091463810**

Q. 6 Workers P, Q and R are given. P can complete a piece of work in 10 days, Q will complete it in 12 days while R will complete it in 15 days. How many days are required to complete the work if they work together?

Ans
1. 4
2. 20
3. 18
4. $12\frac{1}{3}$

Question ID : **441009374487**
Option 1 ID : **4410091463536**
Option 2 ID : **4410091463534**
Option 3 ID : **4410091463533**
Option 4 ID : **4410091463535**

Q. 7 A dealer makes his goods 20% above the cost price. He then allows some discount on it and makes a profit of 10.4%. The rate of discount is ____.

Ans
1. 9%
2. 8%
3. $8\frac{1}{3}\%$
4. $9\frac{1}{3}\%$

Question ID : **441009373658**
Option 1 ID : **4410091460218**
Option 2 ID : **4410091460217**
Option 3 ID : **4410091460219**
Option 4 ID : **4410091460220**

QuickSarkari.com | WhatsApp Channel | Telegram: t.me/quick_sarkari

Q. X and Y invest in a business in the ratio 3 : 2. If 5% of the total profit goes to charity and X's share is ₹2,451, the total profit is:

Ans
✔ 1. ₹4,300

✗ 2. ₹4,315

✗ 3. ₹4,340

✗ 4. ₹4,290

Question ID : **441009374194**
Option 1 ID : **4410091462362**
Option 2 ID : **4410091462363**
Option 3 ID : **4410091462364**
Option 4 ID : **4410091462361**

Q. Amit buys mangoes at the rate of 3 kg for ₹15 and sells them at 5 kg for ₹50. To earn ₹160 as profit, what quantity of mangoes (in kg) must he sell?

Ans
✗ 1. 34

✔ 2. 32

✗ 3. 33

✗ 4. 35

Question ID : **441009374166**
Option 1 ID : **4410091462251**
Option 2 ID : **4410091462249**
Option 3 ID : **4410091462250**
Option 4 ID : **4410091462252**

Q. A man sells a mobile phone for ₹600 and loses something. If he had sold it for ₹1,260, his gain would have been double the former loss. The cost price (in ₹) of the mobile phone is:

Ans
✔ 1. 820

✗ 2. 830

✗ 3. 840

✗ 4. 810

Question ID : **441009374158**
Option 1 ID : **4410091462217**
Option 2 ID : **4410091462218**
Option 3 ID : **4410091462220**
Option 4 ID : **4410091462219**

Q. If a 1708-m long train crosses a pole in 122 seconds, then find the time (in 11 seconds) taken by the train to cross a 840-m long platform.

Ans
✗ 1. 183
✓ 2. 182
✗ 3. 188
✗ 4. 189

Question ID : **441009374022**
Option 1 ID : **4410091461675**
Option 2 ID : **4410091461673**
Option 3 ID : **4410091461674**
Option 4 ID : **4410091461676**

Q. A water pipe can fill a tank in 20 hours. However, due to poor water supply for 12 4 hours and 20 minutes, the water came with 60% of original pressure. How much time (in hours) did it take to fill the tank?

Ans
✗ 1. $21\frac{4}{15}$
✗ 2. $21\frac{13}{15}$
✗ 3. $21\frac{8}{15}$
✓ 4. $21\frac{11}{15}$

Question ID : **441009374420**
Option 1 ID : **4410091463268**
Option 2 ID : **4410091463266**
Option 3 ID : **4410091463267**
Option 4 ID : **4410091463265**

Q. If an electricity bill is paid before due date, one gets a reduction of 5% on the 13 amount of the bill. By paying the bill before due date, a person got a reduction of ₹17. The amount of his electricity bill was:

Ans
✓ 1. ₹340
✗ 2. ₹310
✗ 3. ₹320
✗ 4. ₹330

Question ID : **441009373728**
Option 1 ID : **4410091460500**
Option 2 ID : **4410091460497**
Option 3 ID : **4410091460498**
Option 4 ID : **4410091460499**

QuickSarkari.com | WhatsApp Channel | Telegram: t.me/quick_sarkari

Q. A and B entered into a partnership business, with B investing ₹50,000. After 4 14 months, B withdrew ₹7,500, and after another 5 months, he withdrew ₹9,000. What was A's investment (in ₹), if at the end of one year, he received 40% of the total profit?

Ans
1. 27,250
2. 28,000
3. 28,500
4. 26,500

Question ID : **441009374192**
Option 1 ID : **4410091462354**
Option 2 ID : **4410091462355**
Option 3 ID : **4410091462356**
Option 4 ID : **4410091462353**

Q. A motorist covers a total distance of 30 km in 47 minutes. For the first 10 15 minutes, he travels at a speed of x km/hr. For the next 25 minutes, he doubles his speed. In the final 12 minutes, he returns to his original speed of x km/hr. What is the value of x?

Ans
1. 30
2. 28
3. 25
4. 22

Question ID : **441009373997**
Option 1 ID : **4410091461576**
Option 2 ID : **4410091461575**
Option 3 ID : **4410091461573**
Option 4 ID : **4410091461574**

Q. If 11.2 : x :: x : 34.3, and x > 0, then find the value of x. 16

Ans
1. 24.4
2. 19.6
3. 23.9
4. 17.7

Question ID : **441009373935**
Option 1 ID : **4410091461326**
Option 2 ID : **4410091461325**
Option 3 ID : **4410091461328**
Option 4 ID : **4410091461327**

Q. 17 The base area of a conical object is 154 cm^2. If the height of t curved surface area of the object is:

(Use $\pi = \frac{22}{7}$)

Ans
1. 187 cm^2
2. 190 cm^2
3. 192.5 cm^2
4. 183.5 cm^2

Question ID : **441009374592**
Option 1 ID : **4410091463956**
Option 2 ID : **4410091463953**
Option 3 ID : **4410091463954**
Option 4 ID : **4410091463955**

Q. 18 **Two pipes P_1 and P_2 can fill a cistern in 30 hours and 45 hours, respectively. If both the pipes are opened simultaneously, how long will it take to fill the cistern?**

Ans
1. 90 hours
2. 18 hours
3. 60 hours
4. 15 hours

Question ID : **441009374186**
Option 1 ID : **4410091462329**
Option 2 ID : **4410091462332**
Option 3 ID : **4410091462331**
Option 4 ID : **4410091462330**

Q. 19 If the difference between curved surface area and the total surface area of a solid cylinder is 37268 cm^2, then find the radius of the base. Take $\pi = \frac{22}{7}$

Ans
1. 11 cm
2. 66 cm
3. 77 cm
4. 22 cm

Question ID : **441009374631**
Option 1 ID : **4410091464112**
Option 2 ID : **4410091464109**
Option 3 ID : **4410091464111**
Option 4 ID : **4410091464110**

Q. A 100 m long train overtakes a man moving at a speed of 9 km/hr (in same direction) in 20 seconds. How much time (in seconds) will it take this train to completely cross another 495 m long train, moving in the opposite direction at a speed of 75 km/hr?

20

Ans

✗ 1. 17

✗ 2. 38

✗ 3. 41

✓ 4. 21

Question ID : **441009373905**
Option 1 ID : **4410091461208**
Option 2 ID : **4410091461206**
Option 3 ID : **4410091461207**
Option 4 ID : **4410091461205**

Section : **Test of English Language and Comprehension**

Q. Select the most appropriate option to fill in the blank.

1

Her dress was _____ than mine.

Ans

✓ 1. brighter

✗ 2. more brighter

✗ 3. bright

✗ 4. most bright

Question ID : **441009349192**
Option 1 ID : **4410091363175**
Option 2 ID : **4410091363177**
Option 3 ID : **4410091363174**
Option 4 ID : **4410091363176**

QuickSarkari.com | WhatsApp Channel | Telegram: t.me/quick_sarkari

Q. 2 Sentences of a paragraph are given below in jumbled order. Arrange the sentences in the correct order to form a meaningful and coherent paragraph.

(A) Stammering is a habit disorder commonly linked with a lack of self-confidence.
(B) Psychologists often divide the process of addressing this issue into four steps.
(C) The first stage is understanding spoken language followed by simple sentence speaking.
(D) The child then learns speaking complex sentences finally by recognising the written alphabet.

Ans
✔ 1. ABCD
✘ 2. BCAD
✘ 3. DCBA
✘ 4. CABD

Question ID : **441009349500**
Option 1 ID : **4410091364406**
Option 2 ID : **4410091364407**
Option 3 ID : **4410091364409**
Option 4 ID : **4410091364408**

Q. 3 Select the most appropriate option that rectifies the underlined word in the given sentence.

The employee was charged <u>on</u> violating the company's code of conduct.

Ans
✔ 1. with
✘ 2. over
✘ 3. of
✘ 4. at

Question ID : **441009348981**
Option 1 ID : **4410091362330**
Option 2 ID : **4410091362333**
Option 3 ID : **4410091362331**
Option 4 ID : **4410091362332**

Q. 4 Select the option that will improve the highlighted part of the given sentence.

Of the two ideas, this one is <u>good</u>.

Ans
✘ 1. the worst
✘ 2. the best
✘ 3. bad
✔ 4. better

Question ID : **441009349190**
Option 1 ID : **4410091363168**
Option 2 ID : **4410091363166**
Option 3 ID : **4410091363169**
Option 4 ID : **4410091363167**

Q. 5 Select the most appropriate option that rectifies the prepositional error(s) in the given sentence.

The software is compatible with working across different platforms.

Ans
1. The software is compatible for working across different platforms.
2. The software is compatible on working across different platforms.
3. The software is compatible with working on different platforms.
4. The software is compatible with working with different platforms.

Question ID : **441009348993**
Option 1 ID : **4410091362378**
Option 2 ID : **4410091362380**
Option 3 ID : **4410091362379**
Option 4 ID : **4410091362381**

Q. 6 Select the most appropriate option that rectifies the underlined word in the given sentence.

She tried to conceal the surprise party <u>of</u> her best friend.

Ans
1. to
2. with
3. by
4. from

Question ID : **441009348980**
Option 1 ID : **4410091362326**
Option 2 ID : **4410091362327**
Option 3 ID : **4410091362329**
Option 4 ID : **4410091362328**

Q. 7 Select the most appropriate option to fill in the blank.

She does not _____ understand the implications of her actions.

Ans
1. practically
2. fully
3. merely
4. neatly

Question ID : **441009349228**
Option 1 ID : **4410091363320**
Option 2 ID : **4410091363318**
Option 3 ID : **4410091363321**
Option 4 ID : **4410091363319**

QuickSarkari.com | WhatsApp Channel | Telegram: t.me/quick_sarkari

Q. 8 Select the most appropriate option that rectifies the underlined preposition in the given sentence.

Sheila hasn't spoken to him <u>on</u> yesterday.

Ans
1. since
2. for
3. from
4. during

Question ID : **441009348991**
Option 1 ID : **4410091362371**
Option 2 ID : **4410091362372**
Option 3 ID : **4410091362370**
Option 4 ID : **4410091362373**

Q. 9 Sentences of a paragraph are given below in jumbled order. Arrange the sentences in the correct order to form a meaningful and coherent paragraph.

(A) Reading fiction develops empathy and imagination.
(B) Unlike non-fiction, it invites readers into completely new worlds.
(C) These stories make us see life from different perspectives.
(D) As a result, fiction holds a special place in many people's hearts.

Ans
1. DCBA
2. CADB
3. ABDC
4. BACD

Question ID : **441009941331**
Option 1 ID : **4410093718988**
Option 2 ID : **4410093718989**
Option 3 ID : **4410093718990**
Option 4 ID : **4410093718987**

Q. 10 Select the most appropriate option to fill in the blank.

There was a _____ amount of liquid in the test tube.

Ans
1. negligent
2. neglected
3. negligible
4. illegible

Question ID : **441009349207**
Option 1 ID : **4410091363235**
Option 2 ID : **4410091363234**
Option 3 ID : **4410091363237**
Option 4 ID : **4410091363236**

QuickSarkari.com | WhatsApp Channel | Telegram: t.me/quick_sarkari

Q. Select the most appropriate option to fill in the blank.
11

He had _____ died in a road rage incident last month.

Ans
✗ 1. totally

✓ 2. nearly

✗ 3. indeed

✗ 4. rather

Question ID : **441009349229**
Option 1 ID : **4410091363325**
Option 2 ID : **4410091363324**
Option 3 ID : **4410091363323**
Option 4 ID : **4410091363322**

Q. Select the most appropriate article to fill in the blank. If no article is needed, select 'No article required'.
12

I saw ___ eagle flying high in the sky.

Ans
✗ 1. a

✓ 2. an

✗ 3. No article required

✗ 4. the

Question ID : **441009348968**
Option 1 ID : **4410091362278**
Option 2 ID : **4410091362279**
Option 3 ID : **4410091362281**
Option 4 ID : **4410091362280**

Q. Select the sentence that contains a grammatical error.
13

Ans
✗ 1. During the intensive training program, the aspiring astronauts underwent a rigorous series of simulations, preparing them for the challenges of space exploration and extravehicular activities.

✗ 2. In the wake of the devastating natural disaster, an outpouring of support from volunteers and aid organisations provided essential relief to the affected communities.

✗ 3. Following a series of complex negotiations, the international trade agreement was finally ratified, marking a significant milestone in the economic cooperation between the participating nations.

✓ 4. The seasoned architect, with a portfolio of groundbreaking designs, submitted a ambitious proposal for the new civic centre, highlighting its sustainable features and community-centric layout.

Question ID : **441009140127**
Option 1 ID : **441009556707**
Option 2 ID : **441009556706**
Option 3 ID : **441009556705**
Option 4 ID : **441009556704**

Q. Select the most appropriate article to fill in the blank. If no article is needed, select 'No article required'. 14

He is looking for ___ job that matches his skills.

Ans

✔ 1. a

✘ 2. the

✘ 3. No article required

✘ 4. an

Question ID : **441009348967**
Option 1 ID : **4410091362274**
Option 2 ID : **4410091362276**
Option 3 ID : **4410091362277**
Option 4 ID : **4410091362275**

Q. Select the sentence that contains a grammatical error. 15

Ans

✘ 1. The Black Sea separates Eastern Europe from Western Asia.

✘ 2. She has always dreamed of visiting the Maldives.

✔ 3. The Mount Everest is known for its challenging climbing routes.

✘ 4. The President of France visited Canada last month.

Question ID : **441009131301**
Option 1 ID : **441009521775**
Option 2 ID : **441009521776**
Option 3 ID : **441009521778**
Option 4 ID : **441009521777**

QuickSarkari.com | WhatsApp Channel | Telegram: t.me/quick_sarkari

Comprehension:

Read the following passage carefully and answer the questions that follow.

The invention of the printing press in the 15th century by Johannes Gutenberg revolutionised the way knowledge was shared and preserved. Before this invention, books were handwritten, making them expensive and accessible only to the wealthy elite. The printing press introduced movable type, enabling the mass production of books and other written materials. As a result, literacy rates increased, and information spread rapidly across Europe. This breakthrough played a crucial role in significant historical movements, such as the Renaissance and the Reformation, by providing people with access to new ideas and perspectives. The printing press also paved the way for the development of newspapers, fostering communication and the exchange of information on a global scale. Today, the printing press is considered one of the most important inventions in human history, laying the foundation for modern education, media, and the free exchange of ideas. Its impact is a testament to the power of innovation in shaping society.

SubQuestion No : 16

Q. What inference can be drawn from the passage?
16

Ans

✗ 1. The printing press was the sole reason for the Renaissance.

✓ 2. Increased access to information can drive societal progress.

✗ 3. Handwritten books were of no cultural value before the printing press.

✗ 4. The printing press had limited influence outside Europe.

Question ID : **441009349539**
Option 1 ID : **4410091364546**
Option 2 ID : **4410091364547**
Option 3 ID : **4410091364548**
Option 4 ID : **4410091364549**

QuickSarkari.com | WhatsApp Channel | Telegram: t.me/quick_sarkari

Comprehension:

Read the following passage carefully and answer the questions that follow.

The invention of the printing press in the 15th century by Johannes Gutenberg revolutionised the way knowledge was shared and preserved. Before this invention, books were handwritten, making them expensive and accessible only to the wealthy elite. The printing press introduced movable type, enabling the mass production of books and other written materials. As a result, literacy rates increased, and information spread rapidly across Europe. This breakthrough played a crucial role in significant historical movements, such as the Renaissance and the Reformation, by providing people with access to new ideas and perspectives. The printing press also paved the way for the development of newspapers, fostering communication and the exchange of information on a global scale. Today, the printing press is considered one of the most important inventions in human history, laying the foundation for modern education, media, and the free exchange of ideas. Its impact is a testament to the power of innovation in shaping society.

SubQuestion No : 17

Q. 17 **What is the most appropriate title for the passage?**

Ans

✗ 1. The Evolution of Communication

✓ 2. The Printing Press: A Revolutionary Invention

✗ 3. The History of Books

✗ 4. The Role of Technology in Education

Question ID : **441009349536**
Option 1 ID : **4410091364537**
Option 2 ID : **4410091364534**
Option 3 ID : **4410091364536**
Option 4 ID : **4410091364535**

QuickSarkari.com | WhatsApp Channel | Telegram: t.me/quick_sarkari

Comprehension:

Read the following passage carefully and answer the questions that follow.

The invention of the printing press in the 15th century by Johannes Gutenberg revolutionised the way knowledge was shared and preserved. Before this invention, books were handwritten, making them expensive and accessible only to the wealthy elite. The printing press introduced movable type, enabling the mass production of books and other written materials. As a result, literacy rates increased, and information spread rapidly across Europe. This breakthrough played a crucial role in significant historical movements, such as the Renaissance and the Reformation, by providing people with access to new ideas and perspectives. The printing press also paved the way for the development of newspapers, fostering communication and the exchange of information on a global scale. Today, the printing press is considered one of the most important inventions in human history, laying the foundation for modern education, media, and the free exchange of ideas. Its impact is a testament to the power of innovation in shaping society.

SubQuestion No : 18

Q. 18 Which fact is mentioned in the passage?

Ans

✗ 1. The printing press reduced the importance of literacy.

✗ 2. Gutenberg's invention was only used for religious texts.

✓ 3. The printing press made books more affordable and widely available.

✗ 4. Newspapers existed before the invention of the printing press.

Question ID : **441009349538**
Option 1 ID : **4410091364544**
Option 2 ID : **4410091364545**
Option 3 ID : **4410091364542**
Option 4 ID : **4410091364543**

QuickSarkari.com | WhatsApp Channel | Telegram: t.me/quick_sarkari

Comprehension:

Read the following passage carefully and answer the questions that follow.

The invention of the printing press in the 15th century by Johannes Gutenberg revolutionised the way knowledge was shared and preserved. Before this invention, books were handwritten, making them expensive and accessible only to the wealthy elite. The printing press introduced movable type, enabling the mass production of books and other written materials. As a result, literacy rates increased, and information spread rapidly across Europe. This breakthrough played a crucial role in significant historical movements, such as the Renaissance and the Reformation, by providing people with access to new ideas and perspectives. The printing press also paved the way for the development of newspapers, fostering communication and the exchange of information on a global scale. Today, the printing press is considered one of the most important inventions in human history, laying the foundation for modern education, media, and the free exchange of ideas. Its impact is a testament to the power of innovation in shaping society.

SubQuestion No : 19

Q. 19 What is the central theme of the passage?

Ans

✗ 1. The technological advancements during the Renaissance

✗ 2. The role of handwritten books in preserving culture

✓ 3. The impact of the printing press on society and knowledge dissemination

✗ 4. The invention of newspapers and their role in communication

Question ID : **441009349537**
Option 1 ID : **4410091364539**
Option 2 ID : **4410091364540**
Option 3 ID : **4410091364538**
Option 4 ID : **4410091364541**

QuickSarkari.com | WhatsApp Channel | Telegram: t.me/quick_sarkari

Comprehension:

Read the following passage carefully and answer the questions that follow.

The invention of the printing press in the 15th century by Johannes Gutenberg revolutionised the way knowledge was shared and preserved. Before this invention, books were handwritten, making them expensive and accessible only to the wealthy elite. The printing press introduced movable type, enabling the mass production of books and other written materials. As a result, literacy rates increased, and information spread rapidly across Europe. This breakthrough played a crucial role in significant historical movements, such as the Renaissance and the Reformation, by providing people with access to new ideas and perspectives. The printing press also paved the way for the development of newspapers, fostering communication and the exchange of information on a global scale. Today, the printing press is considered one of the most important inventions in human history, laying the foundation for modern education, media, and the free exchange of ideas. Its impact is a testament to the power of innovation in shaping society.

SubQuestion No : 20

Q. What tone does the author adopt in the passage?
20

Ans

✗ 1. Humorous

✗ 2. Critical

✓ 3. Appreciative

✗ 4. Nostalgic

Question ID : **441009349540**
Option 1 ID : **4410091364553**
Option 2 ID : **4410091364550**
Option 3 ID : **4410091364552**
Option 4 ID : **4410091364551**

Section : **Test of English Language and Comprehension1**

Q. Parts of a sentence are given below in jumbled order. Arrange the parts in the correct order to form a meaningful sentence.
1

A. because more population means more exploitation of natural resources,
B. population explosion comes under the negative limelight
C. and it isn't good for the environment
D. which leads to the devastation of flora and fauna

Ans

✓ 1. BADC

✗ 2. ADCB

✗ 3. BACD

✗ 4. ACDB

Question ID : **441009349515**
Option 1 ID : **4410091364467**
Option 2 ID : **4410091364468**
Option 3 ID : **4410091364469**
Option 4 ID : **4410091364466**

Q. Select the most appropriate meaning of the given proverb.
2
Once bitten, twice shy.

Ans
✗ 1. Inexperienced persons are nervous.
✗ 2. Gather profit in gambling twice.
✗ 3. Beginners have great luck.
✓ 4. Unpleasant experiences induce caution.

Question ID : **441009349892**
Option 1 ID : **4410091365830**
Option 2 ID : **4410091365833**
Option 3 ID : **4410091365831**
Option 4 ID : **4410091365832**

Q. Select the most appropriate ANTONYM of the given word.
3
Parsimonious

Ans
✗ 1. Wealthy
✗ 2. Miser
✓ 3. Generous
✗ 4. Thrifty

Question ID : **441009350132**
Option 1 ID : **4410091366792**
Option 2 ID : **4410091366791**
Option 3 ID : **4410091366793**
Option 4 ID : **4410091366790**

Q. Select the most appropriate meaning of the given proverb.
4
Good wine needs no bush.

Ans
✗ 1. A moral story needs no title.
✓ 2. A good product needs no promotion.
✗ 3. A suitable place needs no boundaries.
✗ 4. A virtuous man needs no introduction.

Question ID : **441009349894**
Option 1 ID : **4410091365841**
Option 2 ID : **4410091365839**
Option 3 ID : **4410091365840**
Option 4 ID : **4410091365838**

Q. Select the most appropriate option that can be used as a one-word substitute for the given group of words. 5

A person who eats human flesh

Ans
- ✔ 1. Cannibal
- ✘ 2. Epicurean
- ✘ 3. Omnivore
- ✘ 4. Non-vegetarian

Question ID : **441009382162**
Option 1 ID : **4410091494324**
Option 2 ID : **4410091494327**
Option 3 ID : **4410091494326**
Option 4 ID : **4410091494325**

Q. Select the most appropriate option that can be used as a one-word substitute for the following group of words. 6

A person who hosts a variety show

Ans
- ✘ 1. Curator
- ✔ 2. Compere
- ✘ 3. Moderator
- ✘ 4. Narrator

Question ID : **441009382159**
Option 1 ID : **4410091494314**
Option 2 ID : **4410091494315**
Option 3 ID : **4410091494312**
Option 4 ID : **4410091494313**

Q. Select the most appropriate synonym of the given word. 7

Allure

Ans
- ✘ 1. Emphasise
- ✘ 2. Awake
- ✔ 3. Fascinate
- ✘ 4. Debate

Question ID : **441009350103**
Option 1 ID : **4410091366677**
Option 2 ID : **4410091366675**
Option 3 ID : **4410091366674**
Option 4 ID : **4410091366676**

QuickSarkari.com | WhatsApp Channel | Telegram: t.me/quick_sarkari

Q. Select the option that can be used as a one-word substitute for the given phrase. 8

A country that has a king or queen

Ans
- ✗ 1. Republic
- ✗ 2. Plutocracy
- ✓ 3. Monarchy
- ✗ 4. Democracy

Question ID : **441009382202**
Option 1 ID : **4410091494487**
Option 2 ID : **4410091494486**
Option 3 ID : **4410091494485**
Option 4 ID : **4410091494484**

Q. Select the correct spelling of the underlined INCORRECTLY spelt word in the given sentence. 9

She has all the skills <u>necessery</u> for the job.

Ans
- ✗ 1. neceesary
- ✗ 2. neccessary
- ✓ 3. necessary
- ✗ 4. necassary

Question ID : **441009350027**
Option 1 ID : **4410091366373**
Option 2 ID : **4410091366370**
Option 3 ID : **4410091366372**
Option 4 ID : **4410091366371**

Q. Select the INCORRECTLY spelt word. 10

Ans
- ✗ 1. resilience
- ✗ 2. locusts
- ✗ 3. rappelling
- ✓ 4. averice

Question ID : **441009350010**
Option 1 ID : **4410091366305**
Option 2 ID : **4410091366304**
Option 3 ID : **4410091366302**
Option 4 ID : **4410091366303**

QuickSarkari.com | WhatsApp Channel | Telegram: t.me/quick_sarkari

Q. Select the option that can be used as a one-word substitute for the underlined segment in the given sentence. 11

The medieval forerunner of chemistry involved various practices aimed at transforming base metals into gold.

Ans
1. Hermeticism
2. Alchemy
3. Occultism
4. Transmutation

Question ID : **441009382169**
Option 1 ID : **4410091494354**
Option 2 ID : **4410091494352**
Option 3 ID : **4410091494353**
Option 4 ID : **4410091494355**

Q. Select the most appropriate meaning of the given proverb. 12

A journey of a thousand miles begins with a single step.

Ans
1. Well begun is half the job done.
2. All big tasks start with small steps.
3. Even small steps can decide your failure.
4. Some journeys are endless.

Question ID : **441009350126**
Option 1 ID : **4410091366767**
Option 2 ID : **4410091366768**
Option 3 ID : **4410091366769**
Option 4 ID : **4410091366766**

Q. Select the most appropriate ANTONYM of the given word. 13

Hideous

Ans
1. Offensive
2. Sincere
3. Attractive
4. Precious

Question ID : **441009350104**
Option 1 ID : **4410091366681**
Option 2 ID : **4410091366678**
Option 3 ID : **4410091366679**
Option 4 ID : **4410091366680**

Q. Select the most appropriate synonym of the given word.
14

Fluctuating

Ans
✔ 1. Irresolute

✘ 2. Obstinate

✘ 3. Timid

✘ 4. Radical

Question ID : **441009350120**
Option 1 ID : **4410091366742**
Option 2 ID : **4410091366743**
Option 3 ID : **4410091366745**
Option 4 ID : **4410091366744**

Q. Select the most appropriate meaning of the given proverb.
15

Actions speak louder than words.

Ans
✘ 1. No action is required.

✘ 2. Nothing can be achieved without any effort.

✔ 3. Your actions convey much more than what you say.

✘ 4. Words are stronger than actions.

Question ID : **441009349916**
Option 1 ID : **4410091365929**
Option 2 ID : **4410091365926**
Option 3 ID : **4410091365927**
Option 4 ID : **4410091365928**

QuickSarkari.com | WhatsApp Channel | Telegram: t.me/quick_sarkari

Comprehension:

Read the given passage and answer the questions that follow.

Whales, majestic creatures of the sea, undergo fascinating and complex processes at the time of death and its aftermath. When a whale dies, it typically sinks to the ocean floor, a phenomenon known as a 'whale fall'. This event creates a unique ecosystem that can sustain marine life for decades. The initial stage involves scavengers such as sharks feeding on the whale's flesh. As the whale's body decomposes, specialised bacteria break down its fat, releasing nutrients into the surrounding waters. Over time, this carcass supports various creatures, including bone-eating worms that feed on the whale's bones. The whale fall serves as a vital food source in deep-sea environments, which are often nutrient-poor. In contrast, when a whale washes ashore, it presents different challenges. The carcass quickly begins to decompose, releasing an overpowering smell and attracting scavengers like birds and foxes. As gases accumulate, the carcass can bloat and even explode if not carefully managed. The body can also pollute nearby water and soil, posing a health hazard. Disposal methods include burial, towing the carcass back to sea, or incineration, each carrying its own difficulties.

SubQuestion No : 16

Q. How would one describe the tone regarding the challenges of beached whale carcasses? **16**

Ans

✗ 1. Joyful and celebratory

✗ 2. Critical and negative

✗ 3. Sarcastic and dismissive

✓ 4. Neutral with a focus on factual information

Question ID : **441009349564**
Option 1 ID : **4410091364632**
Option 2 ID : **4410091364630**
Option 3 ID : **4410091364631**
Option 4 ID : **4410091364633**

QuickSarkari.com | WhatsApp Channel | Telegram: t.me/quick_sarkari

Comprehension:

Read the given passage and answer the questions that follow.

Whales, majestic creatures of the sea, undergo fascinating and complex processes at the time of death and its aftermath. When a whale dies, it typically sinks to the ocean floor, a phenomenon known as a 'whale fall'. This event creates a unique ecosystem that can sustain marine life for decades. The initial stage involves scavengers such as sharks feeding on the whale's flesh. As the whale's body decomposes, specialised bacteria break down its fat, releasing nutrients into the surrounding waters. Over time, this carcass supports various creatures, including bone-eating worms that feed on the whale's bones. The whale fall serves as a vital food source in deep-sea environments, which are often nutrient-poor. In contrast, when a whale washes ashore, it presents different challenges. The carcass quickly begins to decompose, releasing an overpowering smell and attracting scavengers like birds and foxes. As gases accumulate, the carcass can bloat and even explode if not carefully managed. The body can also pollute nearby water and soil, posing a health hazard. Disposal methods include burial, towing the carcass back to sea, or incineration, each carrying its own difficulties.

SubQuestion No : 17

Q. 17 What can be inferred about the impact of whale falls on deep-sea ecosystems?

Ans

✗ 1. Whale falls have no impact on the ecosystem.

✗ 2. Whale falls are harmful to sea creatures.

✓ 3. Whale falls release nutrients and support marine life.

✗ 4. Whale falls disrupt marine life.

Question ID : **441009349561**
Option 1 ID : **4410091364621**
Option 2 ID : **4410091364619**
Option 3 ID : **4410091364618**
Option 4 ID : **4410091364620**

QuickSarkari.com | WhatsApp Channel | Telegram: t.me/quick_sarkari

Comprehension:

Read the given passage and answer the questions that follow.

Whales, majestic creatures of the sea, undergo fascinating and complex processes at the time of death and its aftermath. When a whale dies, it typically sinks to the ocean floor, a phenomenon known as a 'whale fall'. This event creates a unique ecosystem that can sustain marine life for decades. The initial stage involves scavengers such as sharks feeding on the whale's flesh. As the whale's body decomposes, specialised bacteria break down its fat, releasing nutrients into the surrounding waters. Over time, this carcass supports various creatures, including bone-eating worms that feed on the whale's bones. The whale fall serves as a vital food source in deep-sea environments, which are often nutrient-poor. In contrast, when a whale washes ashore, it presents different challenges. The carcass quickly begins to decompose, releasing an overpowering smell and attracting scavengers like birds and foxes. As gases accumulate, the carcass can bloat and even explode if not carefully managed. The body can also pollute nearby water and soil, posing a health hazard. Disposal methods include burial, towing the carcass back to sea, or incineration, each carrying its own difficulties.

SubQuestion No : 18

Q. How does the process of whale falls relate to real-world ocean ecosystems? 18

Ans

✔ 1. Whale falls help to provide nutrients in deep-sea environments.

✘ 2. Whale falls harm the marine life living on the ocean floor.

✘ 3. Whale falls are rarely found in nature.

✘ 4. Whale falls lead to the extinction of deep-sea species.

Question ID : **441009349563**
Option 1 ID : **4410091364626**
Option 2 ID : **4410091364627**
Option 3 ID : **4410091364628**
Option 4 ID : **4410091364629**

Comprehension:

Read the given passage and answer the questions that follow.

Whales, majestic creatures of the sea, undergo fascinating and complex processes at the time of death and its aftermath. When a whale dies, it typically sinks to the ocean floor, a phenomenon known as a 'whale fall'. This event creates a unique ecosystem that can sustain marine life for decades. The initial stage involves scavengers such as sharks feeding on the whale's flesh. As the whale's body decomposes, specialised bacteria break down its fat, releasing nutrients into the surrounding waters. Over time, this carcass supports various creatures, including bone-eating worms that feed on the whale's bones. The whale fall serves as a vital food source in deep-sea environments, which are often nutrient-poor. In contrast, when a whale washes ashore, it presents different challenges. The carcass quickly begins to decompose, releasing an overpowering smell and attracting scavengers like birds and foxes. As gases accumulate, the carcass can bloat and even explode if not carefully managed. The body can also pollute nearby water and soil, posing a health hazard. Disposal methods include burial, towing the carcass back to sea, or incineration, each carrying its own difficulties.

SubQuestion No : 19

Q. 19 **According to the passage, which of the following is true about a beached whale?**

Ans

✔ 1. The whale carcass can pollute nearby land and water.

✘ 2. The whale cannot be studied for research.

✘ 3. The whale carcass does not decompose.

✘ 4. The whale will quickly float back to sea.

Question ID : **441009349562**
Option 1 ID : **4410091364622**
Option 2 ID : **4410091364625**
Option 3 ID : **4410091364624**
Option 4 ID : **4410091364623**

QuickSarkari.com | WhatsApp Channel | Telegram: t.me/quick_sarkari

Comprehension:

Read the given passage and answer the questions that follow.

Whales, majestic creatures of the sea, undergo fascinating and complex processes at the time of death and its aftermath. When a whale dies, it typically sinks to the ocean floor, a phenomenon known as a 'whale fall'. This event creates a unique ecosystem that can sustain marine life for decades. The initial stage involves scavengers such as sharks feeding on the whale's flesh. As the whale's body decomposes, specialised bacteria break down its fat, releasing nutrients into the surrounding waters. Over time, this carcass supports various creatures, including bone-eating worms that feed on the whale's bones. The whale fall serves as a vital food source in deep-sea environments, which are often nutrient-poor. In contrast, when a whale washes ashore, it presents different challenges. The carcass quickly begins to decompose, releasing an overpowering smell and attracting scavengers like birds and foxes. As gases accumulate, the carcass can bloat and even explode if not carefully managed. The body can also pollute nearby water and soil, posing a health hazard. Disposal methods include burial, towing the carcass back to sea, or incineration, each carrying its own difficulties.

SubQuestion No : 20

Q. 20 **Identify the ANTONYM of the given word.**

Majestic

Ans

✗ 1. Powerful

✗ 2. Grand

✓ 3. Ordinary

✗ 4. Magnificent

Question ID : **441009349560**
Option 1 ID : **4410091364617**
Option 2 ID : **4410091364614**
Option 3 ID : **4410091364616**
Option 4 ID : **4410091364615**

Section : **Test of Hindi Language and Comprehension**

Q. 1 निम्नलिखित वाक्य खंड क्रम से लिखें।

1. कॉलेज में पढ़ा रहे हैं
2. मजदूर हैं, तब भी वह
3. किशन के पिताजी एक
4. अपने बेटे को महंगे

Ans

✗ 1. 2134

✗ 2. 1234

✓ 3. 3241

✗ 4. 1432

Question ID : **441009354524**
Option 1 ID : **4410091384337**
Option 2 ID : **4410091384339**
Option 3 ID : **4410091384336**
Option 4 ID : **4410091384338**

Q. प्रस्तुत वाक्य का शुद्ध रूप चुनें-
2 मैं तेरे को बता दूंगा

Ans
✗ 1. मैं उनसे बता दूंगा |
✗ 2. मैं आपसे बता दूंगा |
✗ 3. मैं मुझे बता दूंगा
✓ 4. मैं तुम्हें बता दूंगा|

Question ID : **441009354554**
Option 1 ID : **4410091384458**
Option 2 ID : **4410091384456**
Option 3 ID : **4410091384459**
Option 4 ID : **4410091384457**

Q. 'छछूंदर के सिर चमेली का तेल' लोकोक्ति का अर्थ है-
3

Ans
✗ 1. छोटे कार्य के लिए बड़े-बड़े संसाधन जुटाना
✗ 2. अपनी हैसियत से अधिक शेखी बघारना
✓ 3. अयोग्य व्यक्ति के पास स्तरीय वस्तु का होना
✗ 4. बेमेल वस्तुओं को एक जगह एकत्र करना

Question ID : **441009354105**
Option 1 ID : **4410091382660**
Option 2 ID : **4410091382661**
Option 3 ID : **4410091382663**
Option 4 ID : **4410091382662**

Q. दिए गए वाक्य में उचित प्रेरणार्थक क्रिया शब्द का चयन करके रिक्त स्थान की पूर्ति करें -
4 रोहित अपने पुत्र को गुरू से दीक्षा _____ है।

Ans
✓ 1. दिलवाता
✗ 2. लिखवाता
✗ 3. लिखवाया
✗ 4. खिलवाता

Question ID : **441009353879**
Option 1 ID : **4410091381756**
Option 2 ID : **4410091381757**
Option 3 ID : **4410091381759**
Option 4 ID : **4410091381758**

Q. उचित कारक चिह्न चुनकर निम्नलिखित वाक्य के रिक्त स्थान की पूर्ति करें-
5 स्थलीय जीवों में हाथी सब ___ बड़ा पशु है

Ans
✗ 1. पर

✓ 2. से

✗ 3. का

✗ 4. में

Question ID : **441009353960**
Option 1 ID : **4410091382081**
Option 2 ID : **4410091382083**
Option 3 ID : **4410091382082**
Option 4 ID : **4410091382080**

Q. निम्नलिखित वाक्यांश के आधार पर सार्थक शब्द का चयन करें।
6 ऊपर आने वाला श्वास _____

Ans
✗ 1. उदित

✓ 2. उच्छ्वास

✗ 3. उन्नत

✗ 4. उवास

Question ID : **441009354513**
Option 1 ID : **4410091384295**
Option 2 ID : **4410091384292**
Option 3 ID : **4410091384294**
Option 4 ID : **4410091384293**

Q. निम्नलिखित वाक्यों में से तीन वाक्य विशेष संदर्भ के कारण एक दूसरे संबन्धित हैं किन्तु एक वाक्य भिन्न है
7 अतः उस अतिरिक्त वाक्य का चयन करें।
प्रेमचंद अपने समय के महान कथाकार थे। उनकी कहानियाँ समाज के हर वर्ग को प्रस्तुत करती हैं। उनकी कहानी ईदगाह में बाल मनोविज्ञान का अद्भुत चित्रण मिलता है। उनके द्वारा लिखित नाटक कर्बला कुछ भिन्न प्रकृति का है।

Ans
✗ 1. उनकी कहानियाँ समाज के हर वर्ग को प्रस्तुत करती हैं।

✗ 2. प्रेमचंद अपने समय के महान कथाकार थे।

✗ 3. उनकी कहानी ईदगाह में बाल मनोविज्ञान का अद्भुत चित्रण मिलता है।

✓ 4. उनके द्वारा लिखित नाटक कर्बला कुछ भिन्न प्रकृति का है।

Question ID : **441009354539**
Option 1 ID : **4410091384398**
Option 2 ID : **4410091384397**
Option 3 ID : **4410091384399**
Option 4 ID : **4410091384396**

QuickSarkari.com | WhatsApp Channel | Telegram: t.me/quick_sarkari

Q. दिए गए वाक्यों में से कौन सा वाक्य शुद्ध है?
8

Ans
✔ 1. मन में आशा, संघर्ष करने की इच्छा और कर्मठता हो तो मनुष्य के लिए कुछ भी असंभव नहीं है।

✘ 2. कुछ भी असंभव नहीं है मन में आशा ,संघर्ष करने की इच्छा और कर्मठता हो तो मनुष्य के लिए ।

✘ 3. मनुष्य के लिए कुछ भी असंभव नहीं है मन में आशा,संघर्ष करने की इच्छा और कर्मठता हो तो।

✘ 4. मन में आशा, संघर्ष करने की इच्छा और कर्मठता हो तो मनुष्य के लिए असंभव नहीं है कुछ भी।

Question ID : **441009354551**
Option 1 ID : **4410091384446**
Option 2 ID : **4410091384445**
Option 3 ID : **4410091384447**
Option 4 ID : **4410091384444**

Q. नीचे दिए गए मुहावरे के अर्थ को चार विकल्पों में से कोई एक सही विकल्प चुनकर लिखिए।
9

विष घोलना -

Ans
✘ 1. हार मान लेना

✘ 2. झगड़ा करना

✔ 3. बुराई फैलाना

✘ 4. दुविधा में पड़ना

Question ID : **441009354139**
Option 1 ID : **4410091382799**
Option 2 ID : **4410091382798**
Option 3 ID : **4410091382797**
Option 4 ID : **4410091382796**

Q. उचित वाक्यांश चुनकर निम्नलिखित वाक्य के रिक्त स्थान की पूर्ति करें-
10 'जिस समय वह यहाँ आई _____ मैं यहाँ नहीं था

Ans
✘ 1. उस समय को

✔ 2. उस समय पर

✘ 3. उस समय में

✘ 4. उस समय के लिए

Question ID : **441009353958**
Option 1 ID : **4410091382075**
Option 2 ID : **4410091382072**
Option 3 ID : **4410091382073**
Option 4 ID : **4410091382074**

QuickSarkari.com | WhatsApp Channel | Telegram: t.me/quick_sarkari

Q. 11 निम्नलिखित वाक्यों में से तीन वाक्य विशेष संदर्भ के कारण एक दूसरे संबन्धित हैं किन्तु एक वाक्य भिन्न है अतः उस अतिरिक्त वाक्य का चयन करें।
विद्या आज इतनी मेहनत से पढ़ रही है। वह एक होनहार छात्रा है। उसमें सफलता पाने की प्रबल इच्छा है।
मेरा विश्वास है कि एक दिन वह अवश्य सफल हो जाएगी।

Ans
✗ 1. उसमें सफलता पाने की प्रबल इच्छा है।
✗ 2. विद्या आज इतनी मेहनत से पढ़ रही है।
✗ 3. वह एक होनहार छात्रा है।
✓ 4. मेरा विश्वास है कि एक दिन वह अवश्य सफल हो जाएगी।

Question ID : **441009354543**
Option 1 ID : **4410091384415**
Option 2 ID : **4410091384413**
Option 3 ID : **4410091384414**
Option 4 ID : **4410091384412**

Q. 12 निम्नलिखित वाक्य खंड क्रम से लिखें।
1. मुझे अच्छा अनुभव है
2. मैंने दस साल इस स्कूल
3. मैं टीचर हूँ और
4. में पढ़ाया है, इसलिए

Ans
✗ 1. 4123
✗ 2. 2143
✗ 3. 3421
✓ 4. 3241

Question ID : **441009354523**
Option 1 ID : **4410091384334**
Option 2 ID : **4410091384333**
Option 3 ID : **4410091384335**
Option 4 ID : **4410091384332**

Q. 13 निम्नलिखित वाक्यांश के आधार पर सार्थक शब्द का चयन करें।
जिसके पास कुछ न हो____

Ans
✗ 1. अभीष्ट
✓ 2. अकिंचन
✗ 3. अनूदित
✗ 4. अप्राप्य

Question ID : **441009354514**
Option 1 ID : **4410091384299**
Option 2 ID : **4410091384296**
Option 3 ID : **4410091384297**
Option 4 ID : **4410091384298**

QuickSarkari.com | WhatsApp Channel | Telegram: t.me/quick_sarkari

Q. दिए गए वाक्य में उचित काल वाचक क्रिया विशेषण का चयन करके रिक्त स्थान की पूर्ति करें -
14 स्वतंत्रता दिवस के अवसर पर _____ प्रत्येक सरकारी इमारत पर ध्वजारोहण होता है।

Ans
✗ 1. ध्यान से
✗ 2. प्राय:
✓ 3. प्रातः
✗ 4. अन्दर

Question ID : **441009353876**
Option 1 ID : **4410091381745**
Option 2 ID : **4410091381747**
Option 3 ID : **4410091381744**
Option 4 ID : **4410091381746**

Q. उचित क्रिया शब्दों से वाक्य पूर्ण करें -
15 सुरेश नौकर से खाना _____ है (पकाना)

Ans
✓ 1. पकवाता
✗ 2. पकाएगा
✗ 3. पकाता
✗ 4. पका

Question ID : **441009353886**
Option 1 ID : **4410091381784**
Option 2 ID : **4410091381785**
Option 3 ID : **4410091381787**
Option 4 ID : **4410091381786**

QuickSarkari.com | WhatsApp Channel | Telegram: t.me/quick_sarkari

Comprehension:

नोट: गद्यांश के आधार पर अग्रलिखित प्रश्नों के उत्तर दीजिए।
'जनतंत्र' शब्द अंग्रेजी के 'डेमोक्रेसी' का हिंदी पर्याय है। इस शब्द का प्रयोग चिंतन के इतिहास में विभिन्न अर्थों में किया गया है। अपने व्यापक रूप में जनतंत्र एक निश्चित प्रकार की समाज व्यवस्था और शासन प्रणाली का द्योतक है। समाज व्यवस्था के रूप में जनतंत्र एक विशिष्ट मानववादी चिंतन का प्रतीक है। जनतंत्र सामाजिक जीवन में उन सभी परिस्थितियों का निवारण करना चाहता है, जो व्यक्तिगत प्रगति का मार्ग रोकती हैं। जनतंत्र आर्थिक, सामाजिक और राजनीतिक न्याय का पथ प्रशस्त करता है। शासन प्रणाली के रूप में जनतंत्र अपने नैतिक आदर्शों की पूर्ति के लिए राज्य की संप्रभुता पर नियंत्रण करना चाहता है, क्योंकि यह आदर्श जनता और समाज के बीच का जीवित विश्वास है। जनतंत्र के लिए यह अनिवार्य हो जाता है कि वह जनता और समाज द्वारा ही इन आदर्शों की प्राप्ति का प्रयास करे। इतिहास से ज्ञात होता है कि समाज और जनता की उच्चता सर्वप्रथम इसी शासन प्रणाली के रूप में व्यक्त हुई।

SubQuestion No : 16

Q. जनतंत्र राज्य की संप्रभुता पर नियंत्रण करना क्यों चाहता है?
16

Ans

✗ 1. जनता के शोषण के लिए

✗ 2. नैतिकता के पतन के लिए

✓ 3. नैतिक आदर्शों की पूर्ति के लिए

✗ 4. जनता को नियंत्रित करने के लिए

Question ID : **441009381453**
Option 1 ID : **4410091491509**
Option 2 ID : **4410091491510**
Option 3 ID : **4410091491512**
Option 4 ID : **4410091491511**

Comprehension:

नोट: गद्यांश के आधार पर अग्रलिखित प्रश्नों के उत्तर दीजिए।
'जनतंत्र' शब्द अंग्रेजी के 'डेमोक्रेसी' का हिंदी पर्याय है। इस शब्द का प्रयोग चिंतन के इतिहास में विभिन्न अर्थों में किया गया है। अपने व्यापक रूप में जनतंत्र एक निश्चित प्रकार की समाज व्यवस्था और शासन प्रणाली का द्योतक है। समाज व्यवस्था के रूप में जनतंत्र एक विशिष्ट मानववादी चिंतन का प्रतीक है। जनतंत्र सामाजिक जीवन में उन सभी परिस्थितियों का निवारण करना चाहता है, जो व्यक्तिगत प्रगति का मार्ग रोकती हैं। जनतंत्र आर्थिक, सामाजिक और राजनीतिक न्याय का पथ प्रशस्त करता है। शासन प्रणाली के रूप में जनतंत्र अपने नैतिक आदर्शों की पूर्ति के लिए राज्य की संप्रभुता पर नियंत्रण करना चाहता है, क्योंकि यह आदर्श जनता और समाज के बीच का जीवित विश्वास है। जनतंत्र के लिए यह अनिवार्य हो जाता है कि वह जनता और समाज द्वारा ही इन आदर्शों की प्राप्ति का प्रयास करे। इतिहास से ज्ञात होता है कि समाज और जनता की उच्चता सर्वप्रथम इसी शासन प्रणाली के रूप में व्यक्त हुई।

SubQuestion No : 17

Q. वाक्यांश में रेखांकित शब्द का अर्थ क्या है?
17

शासन प्रणाली का <u>द्योतक</u> है।

Ans

✗ 1. काम करने वाला

✗ 2. घात लगाने वाला

✓ 3. प्रकट करने वाला

✗ 4. देने वाला

Question ID : **441009381452**
Option 1 ID : **4410091491508**
Option 2 ID : **4410091491506**
Option 3 ID : **4410091491507**
Option 4 ID : **4410091491505**

Comprehension:

नोट: गद्यांश के आधार पर अग्रलिखित प्रश्नों के उत्तर दीजिए।
'जनतंत्र' शब्द अंग्रेजी के 'डेमोक्रेसी' का हिंदी पर्याय है। इस शब्द का प्रयोग चिंतन के इतिहास में विभिन्न अर्थों में किया गया है। अपने व्यापक रूप में जनतंत्र एक निश्चित प्रकार की समाज व्यवस्था और शासन प्रणाली का द्योतक है। समाज व्यवस्था के रूप में जनतंत्र एक विशिष्ट मानववादी चिंतन का प्रतीक है। जनतंत्र सामाजिक जीवन में उन सभी परिस्थितियों का निवारण करना चाहता है, जो व्यक्तिगत प्रगति का मार्ग रोकती हैं। जनतंत्र आर्थिक, सामाजिक और राजनीतिक न्याय का पथ प्रशस्त करता है। शासन प्रणाली के रूप में जनतंत्र अपने नैतिक आदर्शों की पूर्ति के लिए राज्य की संप्रभुता पर नियंत्रण करना चाहता है, क्योंकि यह आदर्श जनता और समाज के बीच का जीवित विश्वास है। जनतंत्र के लिए यह अनिवार्य हो जाता है कि वह जनता और समाज द्वारा ही इन आदर्शों की प्राप्ति का प्रयास करे। इतिहास से ज्ञात होता है कि समाज और जनता की उच्चता सर्वप्रथम इसी शासन प्रणाली के रूप में व्यक्त हुई।

SubQuestion No : 18

Q. समाज और जनता की उच्चता सर्वप्रथम किस शासन प्रणाली में व्यक्त हुई है?
18

Ans

✗ 1. समाजतंत्र में

✗ 2. राजतंत्र में

✓ 3. जनतंत्र में

✗ 4. षड्यंत्र में

Question ID : **441009381454**
Option 1 ID : **4410091491514**
Option 2 ID : **4410091491515**
Option 3 ID : **4410091491513**
Option 4 ID : **4410091491516**

Comprehension:

नोट: गद्यांश के आधार पर अग्रलिखित प्रश्नों के उत्तर दीजिए।
'जनतंत्र' शब्द अंग्रेजी के 'डेमोक्रेसी' का हिंदी पर्याय है। इस शब्द का प्रयोग चिंतन के इतिहास में विभिन्न अर्थों में किया गया है। अपने व्यापक रूप में जनतंत्र एक निश्चित प्रकार की समाज व्यवस्था और शासन प्रणाली का द्योतक है। समाज व्यवस्था के रूप में जनतंत्र एक विशिष्ट मानववादी चिंतन का प्रतीक है। जनतंत्र सामाजिक जीवन में उन सभी परिस्थितियों का निवारण करना चाहता है, जो व्यक्तिगत प्रगति का मार्ग रोकती हैं। जनतंत्र आर्थिक, सामाजिक और राजनीतिक न्याय का पथ प्रशस्त करता है। शासन प्रणाली के रूप में जनतंत्र अपने नैतिक आदर्शों की पूर्ति के लिए राज्य की संप्रभुता पर नियंत्रण करना चाहता है, क्योंकि यह आदर्श जनता और समाज के बीच का जीवित विश्वास है। जनतंत्र के लिए यह अनिवार्य हो जाता है कि वह जनता और समाज द्वारा ही इन आदर्शों की प्राप्ति का प्रयास करे। इतिहास से ज्ञात होता है कि समाज और जनता की उच्चता सर्वप्रथम इसी शासन प्रणाली के रूप में व्यक्त हुई।

SubQuestion No : 19

Q. समाज व्यवस्था के रूप में जनतंत्र किसका प्रतीक है?
19

Ans

✗ 1. साम्राज्यवादी व्यवस्था का

✗ 2. आलोचनवादी दृष्टि का

✓ 3. एक विशिष्ट मानववादी चिंतन का

✗ 4. पूंजीवादी चिंतन का

Question ID : **441009381455**
Option 1 ID : **4410091491519**
Option 2 ID : **4410091491517**
Option 3 ID : **4410091491518**
Option 4 ID : **4410091491520**

Comprehension:

नोट: गद्यांश के आधार पर अग्रलिखित प्रश्नों के उत्तर दीजिए।
'जनतंत्र' शब्द अंग्रेजी के 'डेमोक्रेसी' का हिंदी पर्याय है। इस शब्द का प्रयोग चिंतन के इतिहास में विभिन्न अर्थों में किया गया है। अपने व्यापक रूप में जनतंत्र एक निश्चित प्रकार की समाज व्यवस्था और शासन प्रणाली का द्योतक है। समाज व्यवस्था के रूप में जनतंत्र एक विशिष्ट मानववादी चिंतन का प्रतीक है। जनतंत्र सामाजिक जीवन में उन सभी परिस्थितियों का निवारण करना चाहता है, जो व्यक्तिगत प्रगति का मार्ग रोकती हैं। जनतंत्र आर्थिक, सामाजिक और राजनीतिक न्याय का पथ प्रशस्त करता है। शासन प्रणाली के रूप में जनतंत्र अपने नैतिक आदर्शों की पूर्ति के लिए राज्य की संप्रभुता पर नियंत्रण करना चाहता है, क्योंकि यह आदर्श जनता और समाज के बीच का जीवित विश्वास है। जनतंत्र के लिए यह अनिवार्य हो जाता है कि वह जनता और समाज द्वारा ही इन आदर्शों की प्राप्ति का प्रयास करे। इतिहास से ज्ञात होता है कि समाज और जनता की उच्चता सर्वप्रथम इसी शासन प्रणाली के रूप में व्यक्त हुई।

SubQuestion No : 20

Q. गद्यांश के लिए उपयुक्त शीर्षक क्या हो सकता है?
20

Ans

✗ 1. आदर्श

✗ 2. चिंतन

✗ 3. प्रतीक

✓ 4. जनतंत्र

Question ID : **441009381451**
Option 1 ID : **4410091491501**
Option 2 ID : **4410091491503**
Option 3 ID : **4410091491504**
Option 4 ID : **4410091491502**

Section : **Test of Hindi Language and Comprehension1**

Q. निम्नलिखित मुहावरे के उचित अर्थ का चयन कीजिए-
1 मल्हार अलापना

Ans

✗ 1. मनचाही करना

✗ 2. बहुत गुस्सा करना

✓ 3. चैन से जीवन कटना

✗ 4. थोड़े में ही इतरा जाना

Question ID : **441009354270**
Option 1 ID : **4410091383321**
Option 2 ID : **4410091383322**
Option 3 ID : **4410091383323**
Option 4 ID : **4410091383320**

Q. निम्नलिखित वाक्य को ध्यानपूर्वक पढ़ें और वाक्य में त्रुटि की पहचान कर वाक्य शुद्ध करें।
2 इतनी दूर चलते हुये, मेरे पैरो में छले हो गया।

Ans
✗ 1. इतनी दूर ताक चलते हैं, मेरे पैरों को छले हो गया।
✗ 2. इतनी डेर तक चलते से, मेरे पैरो में छाले हो गाए।
✗ 3. इतनी देर तक चलन को, मेरे पैरों से छले हो गय।
✓ 4. इतनी देर तक चलने से, मेरे पैरों में छाले हो गए।

Question ID : **441009354082**
Option 1 ID : **4410091382569**
Option 2 ID : **4410091382570**
Option 3 ID : **4410091382571**
Option 4 ID : **4410091382568**

Q. निम्नलिखित विकल्पों में से पैर का अनेकार्थि शब्द पहचानें।
3

Ans
✗ 1. कमल
✓ 2. पद
✗ 3. शीर्ष
✗ 4. विधान

Question ID : **441009354064**
Option 1 ID : **4410091382499**
Option 2 ID : **4410091382496**
Option 3 ID : **4410091382497**
Option 4 ID : **4410091382498**

Q. निम्नलिखित विकल्पों में से अनत का तत्सम शब्द पहचानें।
4

Ans
✗ 1. आर्य
✗ 2. अंतिम
✓ 3. अन्यत्र
✗ 4. अंत

Question ID : **441009354068**
Option 1 ID : **4410091382513**
Option 2 ID : **4410091382514**
Option 3 ID : **4410091382512**
Option 4 ID : **4410091382515**

QuickSarkari.com | WhatsApp Channel | Telegram: t.me/quick_sarkari

Q. 'मृगराज' का पर्यायवाची शब्द है-
5

Ans
✗ 1. मयूर
✗ 2. हिरन
✓ 3. सिंह
✗ 4. हंस

Question ID : **441009354094**
Option 1 ID : **4410091382618**
Option 2 ID : **4410091382617**
Option 3 ID : **4410091382616**
Option 4 ID : **4410091382619**

Q. 'मरीची' का पर्यायवाची शब्द है-
6

Ans
✗ 1. मिर्ची
✗ 2. बिजली
✓ 3. सूर्य
✗ 4. यमुना

Question ID : **441009354093**
Option 1 ID : **4410091382612**
Option 2 ID : **4410091382615**
Option 3 ID : **4410091382613**
Option 4 ID : **4410091382614**

Q. निम्नलिखित विकल्पों में से दूसरा का अनेकार्थि शब्द पहचानें।
7

Ans
✗ 1. अलग
✗ 2. पराया
✓ 3. इतर
✗ 4. अभिन्न

Question ID : **441009354065**
Option 1 ID : **4410091382503**
Option 2 ID : **4410091382501**
Option 3 ID : **4410091382500**
Option 4 ID : **4410091382502**

QuickSarkari.com | WhatsApp Channel | Telegram: t.me/quick_sarkari

Q. निम्नलिखित वाक्य को ध्यानपूर्वक पढ़ें और वाक्य में त्रुटि की पहचान कर वाक्य शुद्ध करें।
8 माछली बहुत चिकुनी होती हैं, उसको पकड़ना आसन नही होता।

Ans
✗ 1. मछली बहुत चीकनी होती हैं, उसको पकड़नि आसान नहीं होता।
✗ 2. मच्छी बहुत चिकानी होती हैं, उसको पकडना आसान नहीं होता।
✓ 3. मछली बहुत चिकनी होती है, उसको पकड़ना आसान नहीं होता।
✗ 4. मछली बहत चिकनी होती हैं, उसको पकड़ना आसान नही होती।

Question ID : **441009354083**
Option 1 ID : **4410091382574**
Option 2 ID : **4410091382573**
Option 3 ID : **4410091382572**
Option 4 ID : **4410091382575**

Q. 'उन्नति' का पर्यायवाची शब्द है -
9

Ans
✗ 1. अवनति
✗ 2. पतन
✓ 3. उत्कर्ष
✗ 4. दुर्भाग्य

Question ID : **441009354090**
Option 1 ID : **4410091382601**
Option 2 ID : **4410091382602**
Option 3 ID : **4410091382600**
Option 4 ID : **4410091382603**

Q. निम्नलिखित वाक्य को ध्यानपूर्वक पढ़ें और वाक्य में त्रुटि की पहचान कर वाक्य शुद्ध करें।
10 मेरे पितजी की अपनी गाड़ी बेच दी और स्कूर्टर ले लिया।

Ans
✗ 1. मेरे पीताजी ने अपना गाड़ी बेच दि और स्कूटर ले लीया।
✗ 2. मैरे पिताजी से अपनी गाड़ि बेच दी और स्कुटर ले लिया।
✓ 3. मेरे पिताजी ने अपनी गाड़ी बेच दी और स्कूटर ले लिया।
✗ 4. मेरे पिताजि ने अपनी गड़ी बेच दी ओर स्कूट्र ले लेया।

Question ID : **441009354078**
Option 1 ID : **4410091382555**
Option 2 ID : **4410091382554**
Option 3 ID : **4410091382552**
Option 4 ID : **4410091382553**

Q. दिए गए मुहावरे का अर्थ बताएँ।
11 औघट चाल चलना

Ans
✗ 1. नष्ट कर देना

✗ 2. ऊँचाई पर चढ़ना

✓ 3. असली रास्ता छोड़कर चलना

✗ 4. बाधा पैदा करना

Question ID : **441009354268**
Option 1 ID : **4410091383313**
Option 2 ID : **4410091383315**
Option 3 ID : **4410091383312**
Option 4 ID : **4410091383314**

Q. 'निलय' का पर्यायवाची शब्द है-
12

Ans
✗ 1. नृप

✗ 2. घन

✓ 3. घर

✗ 4. समुद्र

Question ID : **441009354096**
Option 1 ID : **4410091382627**
Option 2 ID : **4410091382625**
Option 3 ID : **4410091382624**
Option 4 ID : **4410091382626**

Q. निम्नलिखित लोकोक्ति का सही अर्थ पहचानें।
13 ककड़ी चोर और फांसी की सजा

Ans
✗ 1. चोर को सबक सीखना

✓ 2. साधारण अपराध के लिए कड़ा दंड देना

✗ 3. अन्याय के साथ न्याय करना

✗ 4. उचित न्याय मिलना

Question ID : **441009354125**
Option 1 ID : **4410091382741**
Option 2 ID : **4410091382740**
Option 3 ID : **4410091382743**
Option 4 ID : **4410091382742**

Q. निम्नलिखित विकल्पों में से अचरज का तत्सम शब्द पहचानें।
14

Ans
✗ 1. अष्ट

✗ 2. आससी

✗ 3. अष्टसी

✓ 4. आश्चर्य

Question ID : **441009354071**
Option 1 ID : **4410091382527**
Option 2 ID : **4410091382526**
Option 3 ID : **4410091382525**
Option 4 ID : **4410091382524**

Q. निम्नलिखित वाक्य को ध्यानपूर्वक पढ़ें और वाक्य में त्रुटि की पहचान कर वाक्य शुद्ध करें।
15 तुम्हे गरबों की सदा मदद कारनी चाहिए।

Ans
✗ 1. तुम्हें गरीबों की सदा मदद करनी चहिए।

✗ 2. तम्हें गरीब की सदा मदाद करने चाहिए।

✗ 3. तुम्हें गरीबों की सदा मदद कारनी चाहिया।

✓ 4. तुम्हें गरीबों की सदा मदद करनी चाहिए।

Question ID : **441009354075**
Option 1 ID : **4410091382541**
Option 2 ID : **4410091382543**
Option 3 ID : **4410091382542**
Option 4 ID : **4410091382540**

QuickSarkari.com | WhatsApp Channel | Telegram: t.me/quick_sarkari

Comprehension:

गद्यांश के आधार पर प्रश्न का उत्तर दें।
हमारा देश भारत उत्सवधर्मी है। विविधता हमारी पहचान है। विभिन्न संस्कृतियों और विभिन्न त्योहारों के साथ-साथ विविध कलाएँ भी हमारी अनूठी पहचान हैं। आपने देखा होगा कि भारत के अलग-अलग राज्यों की अपनी-अपनी विशिष्ट कलाएँ हैं। आपने यह भी देखा होगा कि हमारी कलाओं को त्योहारों, उत्सवों से अलग नहीं किया जा सकता। ये कलाएँ जन्मोत्सव से लेकर, शादी-ब्याह, पूजा तथा खेती-बाड़ी से भी जुड़ी हैं। मनुष्य के जीवन से जुड़ी होने के कारण ही भारत की ये विशिष्ट कलाएँ विरासत के प्रति हमें उत्साह और विश्वास से भर देती हैं। क्या आपको यह नहीं लगता कि पर्वों-त्योहारों या फिर फसलों से कलाओं का जुड़ाव ही एक ओर इसे केवल मनोरंजन या अलंकरण होने से बचाता है, तो दूसरी ओर यही पहलू, प्राचीन परंपराओं की सतत निरंतरता को बनाए रखता है। वास्तव में यही अतीत और वर्तमान के बीच जुड़ाव की कड़ी भी है। अगर हम आज पीछे मुड़कर देखे तो पाएँगे कि जनजातीय और लोककला शैलियों के सभी रूपों में एक व्यवस्था भी दिखाई पड़ती है, जो आगे चलकर शास्त्रीय कलाओं का आधार बनी। एक बात ध्यान देने की है कि आरम्भिक दौर में सभी कलाओं का संबंध लोक या समूह से ही था। बाद में चलकर जब इनका संबंध व्यवसाय से जुड़ा तो व्यक्ति केंद्रित होती चली गई। मध्यकाल तक आते-आते साहित्य, चित्र, संगीत, नृत्य कलाएँ राजाओं और विभिन्न शासकों के संरक्षण में चली गईं और धीरे-धीरे शास्त्रीय नियमों में बँधीं। वे कलाकारों को अपनी अभिरुचियों के अनुरूप कलाओं को सुव्यवस्थित और परिष्कृत करने के लिए प्रोत्साहित भी करते रहते थे।

SubQuestion No : 16

Q. गद्यांश में प्रयुक्त शब्द 'अनुरूप' का सही विलोम शब्द दिए गए विकल्प में से चुनें - 16

Ans

✗ 1. अनुकूल

✗ 2. प्रतिकूल

✗ 3. अनुशरण

✓ 4. प्रतिरूप

Question ID : **441009354870**
Option 1 ID : **4410091385584**
Option 2 ID : **4410091385585**
Option 3 ID : **4410091385586**
Option 4 ID : **4410091385587**

QuickSarkari.com | WhatsApp Channel | Telegram: t.me/quick_sarkari

Comprehension:

गद्यांश के आधार पर प्रश्न का उत्तर दें।

हमारा देश भारत उत्सवधर्मी है। विविधता हमारी पहचान है। विभिन्न संस्कृतियों और विभिन्न त्योहारों के साथ-साथ विविध कलाएँ भी हमारी अनूठी पहचान हैं। आपने देखा होगा कि भारत के अलग-अलग राज्यों की अपनी-अपनी विशिष्ट कलाएँ हैं। आपने यह भी देखा होगा कि हमारी कलाओं को त्योहारों, उत्सवों से अलग नहीं किया जा सकता। ये कलाएँ जन्मोत्सव से लेकर, शादी-ब्याह, पूजा तथा खेती-बाड़ी से भी जुड़ी हैं। मनुष्य के जीवन से जुड़ी होने के कारण ही भारत की ये विशिष्ट कलाएँ विरासत के प्रति हमें उत्साह और विश्वास से भर देती हैं। क्या आपको यह नहीं लगता कि पर्वों-त्योहारों या फिर फसलों से कलाओं का जुड़ाव ही एक ओर इसे केवल मनोरंजन या अलंकरण होने से बचाता है, तो दूसरी ओर यही पहलू, प्राचीन परंपराओं की सतत निरंतरता को बनाए रखता है। वास्तव में यही अतीत और वर्तमान के बीच जुड़ाव की कड़ी भी है। अगर हम आज पीछे मुड़कर देखे तो पाएँगे कि जनजातीय और लोककला शैलियों के सभी रूपों में एक व्यवस्था भी दिखाई पड़ती है, जो आगे चलकर शास्त्रीय कलाओं का आधार बनी। एक बात ध्यान देने की है कि आरम्भिक दौर में सभी कलाओं का संबंध लोक या समूह से ही था। बाद में चलकर जब इनका संबंध व्यवसाय से जुड़ा तो व्यक्ति केंद्रित होती चली गई। मध्यकाल तक आते-आते साहित्य, चित्र, संगीत, नृत्य कलाएँ राजाओं और विभिन्न शासकों के संरक्षण में चली गईं और धीरे-धीरे शास्त्रीय नियमों में बँधीं। वे कलाकारों को अपनी अभिरुचियों के अनुरूप कलाओं को सुव्यवस्थित और परिष्कृत करने के लिए प्रोत्साहित भी करते रहते थे।

SubQuestion No : 17

Q. अतीत और वर्तमान के बीच जुड़ाव की कड़ी क्या है।
17

Ans

✗ 1. फसलों से रीति-रिवाज का जुड़ाव

✗ 2. फसलों से बीजों का जुड़ाव

✓ 3. फसलों से कलाओं का जुड़ाव

✗ 4. फसलों से खेती का जुड़ाव

Question ID : **441009354869**
Option 1 ID : **4410091385581**
Option 2 ID : **4410091385582**
Option 3 ID : **4410091385580**
Option 4 ID : **4410091385583**

QuickSarkari.com | WhatsApp Channel | Telegram: t.me/quick_sarkari

Comprehension:

गद्यांश के आधार पर प्रश्न का उत्तर दें।
हमारा देश भारत उत्सवधर्मी है। विविधता हमारी पहचान है। विभिन्न संस्कृतियों और विभिन्न त्योहारों के साथ-साथ विविध कलाएँ भी हमारी अनूठी पहचान हैं। आपने देखा होगा कि भारत के अलग-अलग राज्यों की अपनी-अपनी विशिष्ट कलाएँ हैं। आपने यह भी देखा होगा कि हमारी कलाओं को त्योहारों, उत्सवों से अलग नहीं किया जा सकता। ये कलाएँ जन्मोत्सव से लेकर, शादी-ब्याह, पूजा तथा खेती-बाड़ी से भी जुड़ी हैं। मनुष्य के जीवन से जुड़ी होने के कारण ही भारत की ये विशिष्ट कलाएँ विरासत के प्रति हमें उत्साह और विश्वास से भर देती हैं। क्या आपको यह नहीं लगता कि पर्वों-त्योहारों या फिर फसलों से कलाओं का जुड़ाव ही एक ओर इसे केवल मनोरंजन या अलंकरण होने से बचाता है, तो दूसरी ओर यही पहलू, प्राचीन परंपराओं की सतत निरंतरता को बनाए रखता है। वास्तव में यही अतीत और वर्तमान के बीच जुड़ाव की कड़ी भी है। अगर हम आज पीछे मुड़कर देखे तो पाएँगे कि जनजातीय और लोककला शैलियों के सभी रूपों में एक व्यवस्था भी दिखाई पड़ती है, जो आगे चलकर शास्त्रीय कलाओं का आधार बनी। एक बात ध्यान देने की है कि आरम्भिक दौर में सभी कलाओं का संबंध लोक या समूह से ही था। बाद में चलकर जब इनका संबंध व्यवसाय से जुड़ा तो व्यक्ति केंद्रित होती चली गई। मध्यकाल तक आते-आते साहित्य, चित्र, संगीत, नृत्य कलाएँ राजाओं और विभिन्न शासकों के संरक्षण में चली गईं और धीरे-धीरे शास्त्रीय नियमों में बँधीं। वे कलाकारों को अपनी अभिरुचियों के अनुरूप कलाओं को सुव्यवस्थित और परिष्कृत करने के लिए प्रोत्साहित भी करते रहते थे।

SubQuestion No : 18

Q. निम्नलिखित में से कोई एक हमारी पहचान नहीं है।
18

Ans

✗ 1. विविधता भारत की पहचान रही है।

✗ 2. विविध कलाएँ भारत की पहचान रही हैं।

✗ 3. भारत उत्सवधर्मी है।

✓ 4. एकतंत्रात्मक व्यवस्था भारत की पहचान रही है।

Question ID : **441009354866**
Option 1 ID : **4410091385569**
Option 2 ID : **4410091385570**
Option 3 ID : **4410091385568**
Option 4 ID : **4410091385571**

QuickSarkari.com | WhatsApp Channel | Telegram: t.me/quick_sarkari

Comprehension:

गद्यांश के आधार पर प्रश्न का उत्तर दें।
हमारा देश भारत उत्सवधर्मी है। विविधता हमारी पहचान है। विभिन्न संस्कृतियों और विभिन्न त्योहारों के साथ-साथ विविध कलाएँ भी हमारी अनूठी पहचान हैं। आपने देखा होगा कि भारत के अलग-अलग राज्यों की अपनी-अपनी विशिष्ट कलाएँ हैं। आपने यह भी देखा होगा कि हमारी कलाओं को त्योहारों, उत्सवों से अलग नहीं किया जा सकता। ये कलाएँ जन्मोत्सव से लेकर, शादी-ब्याह, पूजा तथा खेती-बाड़ी से भी जुड़ी हैं। मनुष्य के जीवन से जुड़ी होने के कारण ही भारत की ये विशिष्ट कलाएँ विरासत के प्रति हमें उत्साह और विश्वास से भर देती हैं। क्या आपको यह नहीं लगता कि पर्वों-त्योहारों या फिर फसलों से कलाओं का जुड़ाव ही एक ओर इसे केवल मनोरंजन या अलंकरण होने से बचाता है, तो दूसरी ओर यही पहलू, प्राचीन परंपराओं की सतत निरंतरता को बनाए रखता है। वास्तव में यही अतीत और वर्तमान के बीच जुड़ाव की कड़ी भी है। अगर हम आज पीछे मुड़कर देखे तो पाएँगे कि जनजातीय और लोककला शैलियों के सभी रूपों में एक व्यवस्था भी दिखाई पड़ती है, जो आगे चलकर शास्त्रीय कलाओं का आधार बनी। एक बात ध्यान देने की है कि आरम्भिक दौर में सभी कलाओं का संबंध लोक या समूह से ही था। बाद में चलकर जब इनका संबंध व्यवसाय से जुड़ा तो व्यक्ति केंद्रित होती चली गई। मध्यकाल तक आते-आते साहित्य, चित्र, संगीत, नृत्य कलाएँ राजाओं और विभिन्न शासकों के संरक्षण में चली गईं और धीरे-धीरे शास्त्रीय नियमों में बँधीं। वे कलाकारों को अपनी अभिरुचियों के अनुरूप कलाओं को सुव्यवस्थित और परिष्कृत करने के लिए प्रोत्साहित भी करते रहते थे।

SubQuestion No : 19

Q. भारत की ये विशिष्ट कलाएँ विरासत के प्रति हमें उत्साह और विश्वास से क्यों भर देती हैं।
19

Ans

✗ 1. क्योंकि ये हमारी चिंतन से जुड़ी हैं।

✗ 2. क्योंकि ये हमारी आदतें बन चुकी हैं।

✓ 3. क्योंकि ये हमारे जीवन से जुड़ी हैं।

✗ 4. क्योंकि ये हमारी मृत्यु से जुड़ी हैं।

Question ID : **441009354868**
Option 1 ID : **4410091385578**
Option 2 ID : **4410091385579**
Option 3 ID : **4410091385576**
Option 4 ID : **4410091385577**

Comprehension:

गद्यांश के आधार पर प्रश्न का उत्तर दें।
हमारा देश भारत उत्सवधर्मी है। विविधता हमारी पहचान है। विभिन्न संस्कृतियों और विभिन्न त्योहारों के साथ-साथ विविध कलाएँ भी हमारी अनूठी पहचान हैं। आपने देखा होगा कि भारत के अलग-अलग राज्यों की अपनी-अपनी विशिष्ट कलाएँ हैं। आपने यह भी देखा होगा कि हमारी कलाओं को त्योहारों, उत्सवों से अलग नहीं किया जा सकता। ये कलाएँ जन्मोत्सव से लेकर, शादी-ब्याह, पूजा तथा खेती-बाड़ी से भी जुड़ी हैं। मनुष्य के जीवन से जुड़ी होने के कारण ही भारत की ये विशिष्ट कलाएँ विरासत के प्रति हमें उत्साह और विश्वास से भर देती हैं। क्या आपको यह नहीं लगता कि पर्वों-त्योहारों या फिर फसलों से कलाओं का जुड़ाव ही एक ओर इसे केवल मनोरंजन या अलंकरण होने से बचाता है, तो दूसरी ओर यही पहलू, प्राचीन परंपराओं की सतत निरंतरता को बनाए रखता है। वास्तव में यही अतीत और वर्तमान के बीच जुड़ाव की कड़ी भी है। अगर हम आज पीछे मुड़कर देखे तो पाएँगे कि जनजातीय और लोककला शैलियों के सभी रूपों में एक व्यवस्था भी दिखाई पड़ती है, जो आगे चलकर शास्त्रीय कलाओं का आधार बनी। एक बात ध्यान देने की है कि आरम्भिक दौर में सभी कलाओं का संबंध लोक या समूह से ही था। बाद में चलकर जब इनका संबंध व्यवसाय से जुड़ा तो व्यक्ति केंद्रित होती चली गई। मध्यकाल तक आते-आते साहित्य, चित्र, संगीत, नृत्य कलाएँ राजाओं और विभिन्न शासकों के संरक्षण में चली गईं और धीरे-धीरे शास्त्रीय नियमों में बँधीं। वे कलाकारों को अपनी अभिरुचियों के अनुरूप कलाओं को सुव्यवस्थित और परिष्कृत करने के लिए प्रोत्साहित भी करते रहते थे।

SubQuestion No : 20

Q. गद्यांश का उपयुक्त शीर्षक हो सकता है।
20

Ans

✗ 1. भारतीय जागरण

✗ 2. भारतीय गुफाएं

✗ 3. भारतीय व्यवस्था

✓ 4. भारतीय कलाएँ

Question ID : **441009354867**
Option 1 ID : **4410091385575**
Option 2 ID : **4410091385573**
Option 3 ID : **4410091385574**
Option 4 ID : **4410091385572**

QuickSarkari.com | WhatsApp Channel | Telegram: t.me/quick_sarkari

Quick Sarkari

Thank you for studying with QuickSarkari!

Get the latest Sarkari Naukri notifications, admit cards, results, answer keys and free previous-year papers first - follow us on WhatsApp and Telegram.

Visit www.quicksarkari.com

Join our WhatsApp Channel

https://whatsapp.com/channel/0029VaxxbrREquiPoXTWM229

Join our Telegram Channel

https://t.me/quick_sarkari

Share this PDF with your friends preparing for DSSSB exams.