DSSSB PREVIOUS YEAR PAPER WITH ANSWER KEY

DSSSB Laboratory Attendant

5 August 2025 · Shift 2

डीएसएसएसबी प्रयोगशाला परिचारक – 5 अगस्त 2025, शिफ्ट 2 का प्रश्न पत्र, उत्तर कुंजी सहित

194	120 min	1 / −0.25	EN + HI
Questions / प्रश्न	Duration / समय	Marks per Q / अंक	Language / भाषा

Sections: General intelligence and Reasoning Ability, General Awareness, Arithmetical and Numerical Ability, English Language and Comprehension, Hindi Language and Comprehension

INSIDE THIS PDF / इस PDF में

Question Paper in English + Hindi with Answer Key (correct option marked in green) + answer table Page 2–48
प्रश्न पत्र अंग्रेज़ी + हिंदी में, उत्तर कुंजी सहित (सही विकल्प हरे रंग में) + उत्तर तालिका

Official DSSSB Response Sheet with Answer Key (correct option ticked in green) Page 49–68
आधिकारिक DSSSB रिस्पॉन्स शीट, उत्तर कुंजी सहित (सही विकल्प हरे टिक से)

HOW TO USE THIS PAPER / इस पेपर का उपयोग कैसे करें

1. Attempt the paper first as a timed online mock test (link below).
   पहले नीचे दिए लिंक से इसे टाइमर के साथ ऑनलाइन मॉक टेस्ट के रूप में हल करें।
2. Check your score, section-wise analysis and solutions online.
   ऑनलाइन अपना स्कोर, खंड-वार विश्लेषण और हल देखें।
3. Use this PDF for revision. Correct answers are shown in green.
   दोहराने के लिए इस PDF का उपयोग करें। सही उत्तर हरे रंग में दिए गए हैं।

Attempt this paper as a FREE online mock test

इस पेपर को फ्री ऑनलाइन मॉक टेस्ट के रूप में हल करें – टाइमर, स्कोर और हल के साथ

https://quicksarkari.com/dsssb-laboratory-attendant-05-august-2025-shift-2-mock-test/

All DSSSB Laboratory Attendant papers and mock tests: **quicksarkari.com/dsssb-mock-test/#laboratory-attendant**

Join WhatsApp Channel | Join Telegram Channel

DSSSB Laboratory Attendant – Question Paper (English + Hindi)

DSSSB प्रयोगशाला परिचारक – प्रश्न पत्र (अंग्रेज़ी + हिंदी)

Exam held on 5 August 2025, Shift 2 · 194 questions · correct answers marked ✔ in green
परीक्षा तिथि 5 अगस्त 2025, शिफ्ट 2 · 194 प्रश्न · सही उत्तर हरे रंग में ✔ से चिह्नित

> The official paper for this shift was in English. The Hindi version of each question is a translation prepared by QuickSarkari; the language-section questions are shown as asked.
> इस शिफ्ट का आधिकारिक प्रश्न पत्र अंग्रेज़ी में था। प्रत्येक प्रश्न का हिंदी संस्करण QuickSarkari द्वारा तैयार किया गया अनुवाद है; भाषा खंड के प्रश्न मूल रूप में दिए गए हैं।

General intelligence and Reasoning Ability

Q.1 Using the same logic as applied for the first two pairs of letter-number clusters, select the letter-number cluster that can replace the question mark (?) in the third pair.
HARSH313 - AHSR3H31 GEETA424 - EGTE4A42 JEEVA737 - ?
पहले दो युग्मों के अक्षर-संख्या समूहों के लिए अपनाए गए तर्क के आधार पर, उस अक्षर-संख्या समूह का चयन कीजिए जो तीसरे युग्म में प्रश्न चिह्न (?) के स्थान पर आ सकता है।
HARSH313 - AHSR3H31 GEETA424 - EGTE4A42 JEEVA737 - ?

(1) EJEV7A73
(2) EJVEA773
(3) EJEVA737
(4) **EJVE7A73 ✔**

Q.2 Refer to the following number series and answer the question that follows. Counting to be done from left to right only.
(Left) 6, 9, 7, 6, 8, 4, 3, 2, 1, 5, 9, 8, 6, 3, 2, 8, 4, 5 (Right)
Which of the following digits is sixth to the left of the fourth digit from the right?
निम्नलिखित संख्या श्रृंखला का संदर्भ लीजिए और उसके बाद दिए गए प्रश्न का उत्तर दीजिए। गिनती केवल बाएँ से दाएँ की जानी चाहिए।
(बाएँ) 6, 9, 7, 6, 8, 4, 3, 2, 1, 5, 9, 8, 6, 3, 2, 8, 4, 5 (दाएँ)
निम्नलिखित में से कौन-सा अंक, दाएँ से चौथे अंक के बाएँ छठा अंक है?

(1) **1 ✔**
(2) 2
(3) 9
(4) 5

Q.3 Eight candidates, Ashwin, Supreet, Padmaja, Kaveri, Rohit, Mohan, Kartikeyan and Rihanna, are seated for a group discussion around a round table, facing the centre. Rohit is sitting third to the right of Ashwin. Mohan is sitting third to the left of Ashwin. Kartikeyan has Padmaja and Rohit as immediate neighbours. Kaveri has Rihanna and Mohan as immediate neighbours. In total, how many people are seated between Padmaja and Mohan when counted from the right of Padmaja?

आठ उम्मीदवार, अश्विन, सुप्रीत, पद्मजा, कावेरी, रोहित, मोहन, कार्तिकेयन और रिहाना, एक समूह चर्चा के लिए एक वृत्ताकार मेज़ के चारों ओर केंद्र की ओर मुख करके बैठे हैं। रोहित, अश्विन के दाईं ओर तीसरे स्थान पर बैठा है। मोहन, अश्विन के बाईं ओर तीसरे स्थान पर बैठा है। कार्तिकेयन के निकटतम पड़ोसी पद्मजा और रोहित हैं। कावेरी के निकटतम पड़ोसी रिहाना और मोहन हैं। पद्मजा के दाईं ओर से गिनने पर, पद्मजा और मोहन के बीच कुल कितने व्यक्ति बैठे हैं?

(1) 3 ✔

(2) 2

(3) 5

(4) 4

Q.4 Using the same logic as applied for the first two pairs of letter-number clusters, select the letter-number cluster that can replace the question mark (?) in the third pair.

S1V2N3 - S3V2N1 P2E4N6 - P6E4N2 Y3E5T7 - ?

पहले दो युग्मों के अक्षर-संख्या समूहों के लिए अपनाए गए तर्क के आधार पर, उस अक्षर-संख्या समूह का चयन कीजिए जो तीसरे युग्म में प्रश्न चिह्न (?) के स्थान पर आ सकता है।

S1V2N3 - S3V2N1 P2E4N6 - P6E4N2 Y3E5T7 - ?

(1) Y5E3T7

(2) Y7E5T3 ✔

(3) Y7T5E3

(4) Y7E3T5

Q.5 Using the same logic as applied for the first two pairs of letter clusters, select the letter cluster that can replace the question mark (?) in the third pair.

DIVERT - IDEVTR MUDDLE - UMDDEL DIVINE - ?

पहले दो युग्मों के अक्षर-समूहों के लिए अपनाए गए तर्क के आधार पर, उस अक्षर-समूह का चयन कीजिए जो तीसरे युग्म में प्रश्न चिह्न (?) के स्थान पर आ सकता है।

DIVERT - IDEVTR MUDDLE - UMDDEL DIVINE - ?

(1) ENIVID

(2) IDVIEN

(3) EGWGOF

(4) IDIVEN ✔

Q.6 Each of A, B, C, D, E, F and G goes to dance on a different day of a week, starting from Monday and ending on Sunday of the same week. D goes to dance on Tuesday. Exactly two people go to dance between A and D. Exactly one person goes to dance between A and G. B goes to dance on the day immediately after G. Only one person goes to dance between C and G. F goes to dance on one of the days after E. On which day does F go to dance?

A, B, C, D, E, F और G में से प्रत्येक, एक ही सप्ताह में सोमवार से शुरू होकर रविवार तक, सप्ताह के एक अलग दिन नृत्य करने जाता है। D मंगलवार को नृत्य करने जाता है। A और D के बीच ठीक दो व्यक्ति नृत्य करने जाते हैं। A और G के बीच ठीक एक व्यक्ति नृत्य करने जाता है। B, G के ठीक अगले दिन नृत्य करने जाता है। C और G के बीच केवल एक व्यक्ति नृत्य करने जाता है। F, E के बाद वाले दिनों में से किसी एक दिन नृत्य करने जाता है। F किस दिन नृत्य करने जाता है?

(1) Thursday / बृहस्पतिवार

(2) Friday / शुक्रवार

(3) Sunday / रविवार ✔

(4) Monday / सोमवार

Q.7 Seven boxes A, B, C, D, E, F and G are kept one over the other but not necessarily in the same order. F is kept second from the bottom. Only three boxes are kept between F and B. E is kept at one of the positions below F. Only D is kept between B and G. C is kept at one of the positions above B. How many boxes are kept below A?

सात बक्से A, B, C, D, E, F और G एक के ऊपर एक रखे गए हैं, लेकिन जरूरी नहीं कि इसी क्रम में हों। F नीचे से दूसरे स्थान पर रखा गया है। F और B के बीच केवल तीन बक्से रखे गए हैं। E को F से नीचे के स्थानों में से किसी एक पर रखा गया है। B और G के बीच केवल D रखा गया है। C को उन स्थानों में से किसी एक पर रखा गया है जो B से ऊपर हैं। A के नीचे कितने बक्से रखे गए हैं?

(1) 2 ✔

(2) 4

(3) 3

(4) 1

Q.8 Refer to the following number series and answer the question that follows. Counting to be done from left to right only.
(All numbers are single-digit numbers only.)
(Left) 4 8 5 3 6 2 1 5 1 7 9 8 3 5 6 2 7 3 7 8 4 3 6 9 7 8 3 6 2 (Right)
How many such odd digits are there each of which is immediately preceded by an even digit and also immediately followed by an odd digit?

निम्नलिखित संख्या श्रृंखला का संदर्भ लीजिए और उसके बाद दिए गए प्रश्न का उत्तर दीजिए। गिनती केवल बाएँ से दाएँ की जानी चाहिए।
(सभी संख्याएँ केवल एक अंक वाली संख्याएँ हैं।)
(बाएँ) 4 8 5 3 6 2 1 5 1 7 9 8 3 5 6 2 7 3 7 8 4 3 6 9 7 8 3 6 2 (दाएँ)
ऐसे कितने विषम अंक हैं, जिनमें से प्रत्येक के ठीक पहले एक सम अंक है और ठीक बाद एक विषम अंक भी है?

(1) One / एक

(2) Two / दो

(3) Three / तीन

(4) More than three / तीन से अधिक ✔

Q.9 Seven boxes A, B, C, D, E, F and G are kept one over the other but not necessarily in the same order. Only E is kept above D. Only two boxes are kept between D and G. Only B is kept below A. C is not kept immediately above G. How many boxes are kept below G?

सात बक्से A, B, C, D, E, F और G एक के ऊपर एक रखे गए हैं, लेकिन जरूरी नहीं कि इसी क्रम में हों। D के ऊपर केवल E रखा गया है। D और G के बीच केवल दो बक्से रखे गए हैं। A के नीचे केवल B रखा गया है। C को G के ठीक ऊपर नहीं रखा गया है। G के नीचे कितने बक्से रखे गए हैं?

(1) 3
(2) 1
(3) 2 ✔
(4) 4

Q.10 Each of the letters in the word KEYBOARD is arranged in the English alphabetical order. How many letters are there in the English alphabet that are between the third letter from the left and the fourth letter from the right in the newly formed word?

शब्द KEYBOARD के प्रत्येक अक्षर को अंग्रेज़ी वर्णमाला क्रम में व्यवस्थित किया जाता है। नए बने शब्द में बाएँ से तीसरे अक्षर और दाएँ से चौथे अक्षर के बीच अंग्रेज़ी वर्णमाला में कितने अक्षर हैं?

(1) Five / पाँच
(2) Seven / सात
(3) Eight / आठ
(4) Six / छः ✔

Q.11 In a certain code language, 'PANT' is coded as '7591' and 'NICE' is coded as '8274'. What is the code for 'N' in the given code language?

एक निश्चित कूट भाषा में, 'PANT' को '7591' के रूप में कूटबद्ध किया जाता है और 'NICE' को '8274' के रूप में कूटबद्ध किया जाता है। दी गई कूट भाषा में 'N' का कूट क्या है?

(1) 8
(2) 9
(3) 2
(4) 7 ✔

Q.12 Refer to the following number series and answer the question that follows. Counting to be done from left to right only.
(All numbers are single-digit numbers only.)
(Left) 4 8 3 1 2 5 3 8 5 9 7 3 9 2 5 3 4 1 7 5 6 8 2 6 2 (Right)
How many such even digits are there each of which is immediately preceded by an odd digit and also immediately followed by an even digit?

निम्नलिखित संख्या श्रृंखला का संदर्भ लीजिए और उसके बाद दिए गए प्रश्न का उत्तर दीजिए। गिनती केवल बाएँ से दाएँ की जानी चाहिए।
(सभी संख्याएँ केवल एक अंक वाली संख्याएँ हैं।)
(बाएँ) 4 8 3 1 2 5 3 8 5 9 7 3 9 2 5 3 4 1 7 5 6 8 2 6 2 (दाएँ)
ऐसे कितने सम अंक हैं, जिनमें से प्रत्येक के ठीक पहले एक विषम अंक है और ठीक बाद एक सम अंक भी है?

(1) 0
(2) 2
(3) 1 ✔
(4) 3

QuickSarkari.com | WhatsApp Channel | Telegram: t.me/quick_sarkari

Q.13 J is daughter of L. L is mother of K. K is the daughter of X. X is the son of I. Y is the father of L's husband. How is Y related to I?

J, L की पुत्री है। L, K की माता है। K, X की पुत्री है। X, I का पुत्र है। Y, L के पति का पिता है। Y का I से क्या संबंध है?

(1) Father / पिता

(2) Brother / भाई

(3) Mother / माता

(4) Husband / पति ✔

Q.14 Refer to the following number series and answer the question that follows. Counting to be done from left to right only.
(All numbers are single-digit numbers only.)
(Left) 7 3 8 4 3 6 9 7 4 5 2 4 1 4 2 1 7 9 8 5 4 2 5 7 9 8 5 2 5 8 4 6 (Right)
How many such odd digits are there each of which is immediately preceded by an even digit and also immediately followed by an odd digit?

निम्नलिखित संख्या श्रृंखला का संदर्भ लीजिए और उसके बाद दिए गए प्रश्न का उत्तर दीजिए। गिनती केवल बाएँ से दाएँ की जानी चाहिए।
(सभी संख्याएँ केवल एक अंक वाली संख्याएँ हैं।)
(बाएँ) 7 3 8 4 3 6 9 7 4 5 2 4 1 4 2 1 7 9 8 5 4 2 5 7 9 8 5 2 5 8 4 6 (दाएँ)
ऐसे कितने विषम अंक हैं, जिनमें से प्रत्येक के ठीक पहले एक सम अंक है और ठीक बाद एक विषम अंक भी है?

(1) One / एक

(2) More than three / तीन से अधिक

(3) Three / तीन ✔

(4) Two / दो

Q.15 In a certain code language, 'BEAR' is coded as '7591' and 'TAPS' is coded as '8274'. What is the code for 'A' in the given code language?

एक निश्चित कूट भाषा में, 'BEAR' को '7591' के रूप में कूटबद्ध किया जाता है और 'TAPS' को '8274' के रूप में कूटबद्ध किया जाता है। दी गई कूट भाषा में 'A' का कूट क्या है?

(1) 7 ✔

(2) 9

(3) 2

(4) 8

Q.16 Seven boxes A, B, C, D, E, F and G are kept one over the other but not necessarily in the same order. Only E is kept above G. Only F is kept between G and D. Only A is kept below C. How many boxes are kept below D?

सात बक्से A, B, C, D, E, F और G एक के ऊपर एक रखे गए हैं, लेकिन जरूरी नहीं कि इसी क्रम में हों। G के ऊपर केवल E रखा गया है। G और D के बीच केवल F रखा गया है। C के नीचे केवल A रखा गया है। D के नीचे कितने बक्से रखे गए हैं?

(1) 4

(2) 2

(3) 3 ✔

(4) 1

Q.17 In a certain code language, 'BLOW' is coded as '7359' and 'WISE' is coded as '8764'. What is the code for 'W' in the given code language?

एक निश्चित कूट भाषा में, 'BLOW' को '7359' के रूप में कूटबद्ध किया जाता है और 'WISE' को '8764' के रूप में कूटबद्ध किया जाता है। दी गई कूट भाषा में 'W' का कूट क्या है?

(1) 6

(2) 7 ✔

(3) 8

(4) 9

Q.18 Seven people, P, Q, R, S, T, U and V, are sitting in a straight line, facing north. Only three people sit between T and U. Only one person (U) sits to the right of S. R sits third to the right of Q. Q is not an immediate neighbour of T. V is not an immediate neighbour of S. Who is sitting at the second position from the extreme left end of the line?

सात व्यक्ति, P, Q, R, S, T, U और V, एक सीधी पंक्ति में उत्तर की ओर मुख करके बैठे हैं। T और U के बीच केवल तीन व्यक्ति बैठे हैं। S के दाईं ओर केवल एक व्यक्ति (U) बैठा है। R, Q के दाईं ओर तीसरे स्थान पर बैठा है। Q, T का निकटतम पड़ोसी नहीं है। V, S का निकटतम पड़ोसी नहीं है। पंक्ति के बाएँ छोर से दूसरे स्थान पर कौन बैठा है?

(1) T

(2) V ✔

(3) S

(4) P

Q.19 In a certain code language, 'A − B' means 'A is the daughter of B', 'A + B' means 'A is the husband of B', 'A * B' means 'A is the brother of B' and 'A % B' means 'A is the wife of B'.
How is A related to B if 'A % B * C'?

एक निश्चित कूट भाषा में, 'A − B' का अर्थ है 'A, B की पुत्री है', 'A + B' का अर्थ है 'A, B का पति है', 'A * B' का अर्थ है 'A, B का भाई है' और 'A % B' का अर्थ है 'A, B की पत्नी है'।
यदि 'A % B * C' है, तो A का B से क्या संबंध है?

(1) Sister / बहन

(2) Brother's daughter / भाई की पुत्री

(3) Brother's wife / भाई की पत्नी

(4) Wife / पत्नी ✔

Q.20 Refer to the given number and symbol series and answer the question that follows. Counting to be done from left to right only.
(Left) 3 @ * 5 2 # $ & 7 1 2 (Right)
If we remove the number '2' from the given series, then in the new series thus formed, how many symbols will be immediately followed by a number?

दी गई संख्या और प्रतीक श्रृंखला का संदर्भ लीजिए और उसके बाद दिए गए प्रश्न का उत्तर दीजिए। गिनती केवल बाएँ से दाएँ की जानी चाहिए।
(बाएँ) 3 @ * 5 2 # $ & 7 1 2 (दाएँ)
यदि दी गई श्रृंखला से संख्या '2' को हटा दिया जाए, तो इस प्रकार बनी नई श्रृंखला में कितने प्रतीकों के ठीक बाद एक संख्या होगी?

(1) Three / तीन

(2) Zero / शून्य

(3) Two / दो ✔

(4) One / एक

Q.21 Based on the English alphabetical order, three of the following four letter-cluster pairs are alike in a certain way and thus form a group. Which letter- cluster pair DOES NOT belong to that group?
(Note: The odd one out is not based on the number of consonants/vowels or their position in the letter-cluster.)
अंग्रेज़ी वर्णमाला क्रम के आधार पर, निम्नलिखित चार अक्षर-समूह युग्मों में से तीन किसी निश्चित प्रकार से एकसमान हैं और इस प्रकार एक समूह बनाते हैं। कौन-सा अक्षर-समूह युग्म उस समूह से संबंधित नहीं है?
(ध्यान दें: असंगत अक्षर-समूह, उस अक्षर-समूह में व्यंजनों/स्वरों की संख्या या उनके स्थान पर आधारित नहीं है।)

(1) DK - PU ✔
(2) BG - EH
(3) FK - IL
(4) SX - VY

Q.22 If 2 is added to each odd digit and 1 is subtracted from each even digit in the number 61532478, how many digits will appear more than once in the new number thus formed?
यदि संख्या 61532478 में प्रत्येक विषम अंक में 2 जोड़ा जाए और प्रत्येक सम अंक में से 1 घटाया जाए, तो इस प्रकार बनी नई संख्या में कितने अंक एक से अधिक बार आएँगे?

(1) Four / चार
(2) Three / तीन ✔
(3) Two / दो
(4) One / एक

Q.23 Select the set in which the numbers are related in the same way as are the numbers of the following sets.
(NOTE: Operations should be performed on the whole numbers, without breaking down the numbers into their constituent digits. E.g. 13 – Operations on 13 such as adding to/subtracting from/multiplying with 13 can be performed. Breaking down 13 into 1 and 3 and then performing mathematical operations on 1 and 3 is not allowed.)
(30, 14)
(54, 26)
उस समुच्चय का चयन कीजिए जिसमें संख्याएँ आपस में उसी प्रकार संबंधित हैं, जिस प्रकार निम्नलिखित समुच्चयों की संख्याएँ संबंधित हैं।
(ध्यान दें: संक्रियाएँ संख्याओं को उनके घटक अंकों में तोड़े बिना, पूर्ण संख्याओं पर की जानी चाहिए। उदाहरण के लिए, 13 – 13 पर की जाने वाली संक्रियाएँ, जैसे 13 में जोड़ना/13 में से घटाना/13 से गुणा करना आदि की जा सकती हैं। 13 को 1 और 3 में तोड़ना और फिर 1 और 3 पर गणितीय संक्रियाएँ करना वर्जित है।)
(30, 14)
(54, 26)

(1) (66, 33)
(2) (62, 31)
(3) (90, 44) ✔
(4) (42, 19)

Q.24 Read the given statements and conclusions carefully. Assuming that the information given in the statements is true, even if it appears to be at variance with commonly known facts, decide which of the given conclusions logically follow(s) from the statements.
Statements:
All biscuits are spinaches.
All spinaches are mirrors.
Conclusions:
(I) Some mirrors are spinaches.
(II) All biscuits are mirrors.
दिए गए कथनों और निष्कर्षों को ध्यानपूर्वक पढ़िए। यह मानते हुए कि कथनों में दी गई जानकारी सत्य है, भले ही वह सामान्य रूप से ज्ञात तथ्यों से भिन्न प्रतीत होती हो, निर्णय लीजिए कि दिए गए निष्कर्षों में से कौन-सा/कौन-से निष्कर्ष कथनों का तार्किक रूप से अनुसरण करता है/करते हैं।
कथन:
सभी बिस्कुट, पालक हैं।
सभी पालक, दर्पण हैं।
निष्कर्ष:
(I) कुछ दर्पण, पालक हैं।
(II) सभी बिस्कुट, दर्पण हैं।

(1) Only conclusion (II) follows. / केवल निष्कर्ष (II) अनुसरण करता है।
(2) Only conclusion (I) follows. / केवल निष्कर्ष (I) अनुसरण करता है।
(3) Both conclusions (I) and (II) follow. / निष्कर्ष (I) और (II) दोनों अनुसरण करते हैं। ✔
(4) Neither conclusion (I) nor (II) follows. / न तो निष्कर्ष (I) और न ही (II) अनुसरण करता है।

Q.25 Select the set in which the numbers are related in the same way as are the numbers of the following sets.
(NOTE: Operations should be performed on the whole numbers, without breaking down the numbers into their constituent digits. E.g. 13 – Operations on 13 such as adding to/subtracting from/multiplying with 13 can be performed. Breaking down 13 into 1 and 3 and then performing mathematical operations on 1 and 3 is not allowed.)
(12, 144, 4)
(9, 135, 5)
उस समुच्चय का चयन कीजिए जिसमें संख्याएँ आपस में उसी प्रकार संबंधित हैं, जिस प्रकार निम्नलिखित समुच्चयों की संख्याएँ संबंधित हैं।
(ध्यान दें: संक्रियाएँ संख्याओं को उनके घटक अंकों में तोड़े बिना, पूर्ण संख्याओं पर की जानी चाहिए। उदाहरण के लिए, 13 – 13 पर की जाने वाली संक्रियाएँ, जैसे 13 में जोड़ना/13 में से घटाना/13 से गुणा करना आदि की जा सकती हैं। 13 को 1 और 3 में तोड़ना और फिर 1 और 3 पर गणितीय संक्रियाएँ करना वर्जित है।)
(12, 144, 4)
(9, 135, 5)

(1) (10, 180, 6) ✔
(2) (15, 405, 10)
(3) (7, 175, 5)
(4) (6, 21, 3)

Q.26 What will come in place of the question mark (?) in the following equation, if '+' and '–' are interchanged and 'x' and '÷' are interchanged? 5 + 57 × 3 − 12 ÷ 3 = ?

यदि '+' और '–' को आपस में बदल दिया जाए तथा 'x' और '÷' को आपस में बदल दिया जाए, तो निम्नलिखित समीकरण में प्रश्न चिह्न (?) के स्थान पर क्या आएगा?

5 + 57 × 3 − 12 ÷ 3 = ?

(1) 8

(2) **22 ✔**

(3) 14

(4) 18

Q.27 In the following number-pairs, the second number is obtained by applying certain mathematical operation(s) to the first number. Which numbers should replace X and Y, so that the pattern followed by the two numbers on the left side of :: is the same as that on the right side of ::? (NOTE: Operations should be performed on the whole numbers, without breaking down the numbers into their constituent digits. E.g. 13 – Operations on 13 such as adding to/subtracting from/multiplying with 13 can be performed. Breaking down 13 into 1 and 3 and then performing mathematical operations on 1 and 3 is not allowed.)

X : 50 :: 60 : Y

निम्नलिखित संख्या-युग्मों में, पहली संख्या पर कुछ निश्चित गणितीय संक्रिया/संक्रियाएँ करके दूसरी संख्या प्राप्त की जाती है। X और Y के स्थान पर कौन-सी संख्याएँ आनी चाहिए, ताकि :: के बाईं ओर की दोनों संख्याओं द्वारा अपनाया गया पैटर्न वही हो जो :: के दाईं ओर है?

(ध्यान दें: संक्रियाएँ संख्याओं को उनके घटक अंकों में तोड़े बिना, पूर्ण संख्याओं पर की जानी चाहिए। उदाहरण के लिए, 13 – 13 पर की जाने वाली संक्रियाएँ, जैसे 13 में जोड़ना/13 में से घटाना/13 से गुणा करना आदि की जा सकती हैं। 13 को 1 और 3 में तोड़ना और फिर 1 और 3 पर गणितीय संक्रियाएँ करना वर्जित है।)

X : 50 :: 60 : Y

(1) **X = 150, Y = 20 ✔**

(2) X = 80, Y = 50

(3) X = 120, Y = 40

(4) X = 100, Y = 20

Q.28 If '+' means '÷', '–' means '+', '×' means '–', '÷' means '×', what will come in place of the question mark (?) in the following equation? 148 – 13 ÷ 8 × 549 + 9 = ?

यदि '+' का अर्थ '÷' है, '–' का अर्थ '+' है, '×' का अर्थ '–' है, '÷' का अर्थ '×' है, तो निम्नलिखित समीकरण में प्रश्न चिह्न (?) के स्थान पर क्या आएगा?

148 – 13 ÷ 8 × 549 + 9 = ?

(1) 182

(2) 201

(3) **191 ✔**

(4) 173

Q.29 Identify the figure given in the options which when put in place of the question mark (?) will logically complete the series.

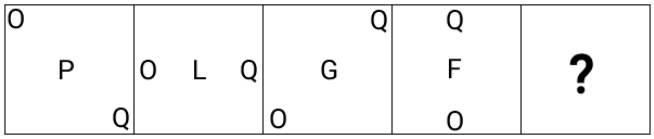

विकल्पों में दी गई उस आकृति की पहचान कीजिए जिसे प्रश्न चिह्न (?) के स्थान पर रखने पर श्रृंखला तार्किक रूप से पूर्ण हो जाएगी।

(1) 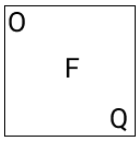

(2) 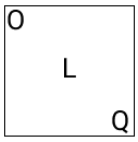

(3) 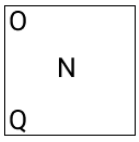

(4) 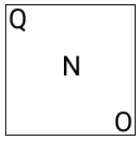

✔

Q.30 If + means −, − means ×, × means ÷, ÷ means +, what will come in place of the question mark (?) in the following equation?

8 − 192 × 16 ÷ 54 + 50 = ?

यदि + का अर्थ − है, − का अर्थ × है, × का अर्थ ÷ है, ÷ का अर्थ + है, तो निम्नलिखित समीकरण में प्रश्न चिह्न (?) के स्थान पर क्या आएगा?

8 − 192 × 16 ÷ 54 + 50 = ?

(1) 100 ✔

(2) 110

(3) 130

(4) 125

Q.31 What should come in place of the question mark (?) in the given series?

1 3 6 ? 15 21

दी गई श्रृंखला में प्रश्न चिह्न (?) के स्थान पर क्या आना चाहिए?

1 3 6 ? 15 21

(1) 10 ✔

(2) 8

(3) 9

(4) 11

QuickSarkari.com | WhatsApp Channel | Telegram: t.me/quick_sarkari

Q.32 Read the given statements and conclusions carefully. Assuming that the information given in the statements is true, even if it appears to be at variance with commonly known facts, decide which of the given conclusions logically follow(s) from the statements.

Statements:

Some bottles are onions.

Some onions are pears.

Conclusions:

(I) Some bottles are pears.

(II) All pears are onions.

दिए गए कथनों और निष्कर्षों को ध्यानपूर्वक पढ़िए। यह मानते हुए कि कथनों में दी गई जानकारी सत्य है, भले ही वह सामान्य रूप से ज्ञात तथ्यों से भिन्न प्रतीत होती हो, निर्णय लीजिए कि दिए गए निष्कर्षों में से कौन-सा/कौन-से निष्कर्ष कथनों का तार्किक रूप से अनुसरण करता है/करते हैं।

कथन:

कुछ बोतलें, प्याज़ हैं।

कुछ प्याज़, नाशपाती हैं।

निष्कर्ष:

(I) कुछ बोतलें, नाशपाती हैं।

(II) सभी नाशपाती, प्याज़ हैं।

(1) Both conclusions (I) and (II) follow. / निष्कर्ष (I) और (II) दोनों अनुसरण करते हैं।

(2) **Neither conclusion (I) nor (II) follows. / न तो निष्कर्ष (I) और न ही (II) अनुसरण करता है। ✔**

(3) Only conclusion (I) follows. / केवल निष्कर्ष (I) अनुसरण करता है।

(4) Only conclusion (II) follows. / केवल निष्कर्ष (II) अनुसरण करता है।

Q.33 Select the correct mirror image of the given combination when the mirror is placed at 'MN' as shown below.

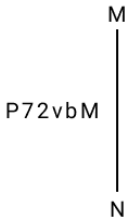

जब दर्पण को नीचे दर्शाए अनुसार 'MN' पर रखा जाए, तो दिए गए संयोजन की सही दर्पण छवि का चयन कीजिए।

(1) 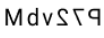 ✔

(2) 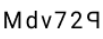

(3) 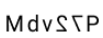

(4) 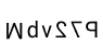

QuickSarkari.com | WhatsApp Channel | Telegram: t.me/quick_sarkari

Q.34 Read the given statements and conclusions carefully. Identify which of the given conclusions is/are true based on the given statements.
Statements:
S < U, N ≥ V, U = Q, Q < N
Conclusions:
I. S < V
II. N > S
दिए गए कथनों और निष्कर्षों को ध्यानपूर्वक पढ़िए। पहचानिए कि दिए गए कथनों के आधार पर दिए गए निष्कर्षों में से कौन-सा/कौन-से सत्य है/हैं।
कथन:
S < U, N ≥ V, U = Q, Q < N
निष्कर्ष:
I. S < V
II. N > S

(1) Both conclusions I and II are true. / निष्कर्ष I और II दोनों सत्य हैं।
(2) Only conclusion I is true. / केवल निष्कर्ष I सत्य है।
(3) Only conclusion II is true. / केवल निष्कर्ष II सत्य है। ✔
(4) Either conclusion I or II is true. / या तो निष्कर्ष I या II सत्य है।

Q.35 Select the number from among the given options that can replace the question mark (?) in the following series.
847, 822, 796, 769, 741, ?
दिए गए विकल्पों में से उस संख्या का चयन कीजिए जो निम्नलिखित श्रृंखला में प्रश्न चिह्न (?) के स्थान पर आ सकती है।
847, 822, 796, 769, 741, ?

(1) 712 ✔
(2) 709
(3) 715
(4) 725

Q.36 Based on the English alphabetical order, three of the following four letter-cluster pairs are alike in a certain way and thus form a group. Which letter- cluster pair DOES NOT belong to that group?
(Note: The odd one out is not based on the number of consonants/vowels or their position in the letter-cluster.)
अंग्रेज़ी वर्णमाला क्रम के आधार पर, निम्नलिखित चार अक्षर-समूह युग्मों में से तीन किसी निश्चित प्रकार से एकसमान हैं और इस प्रकार एक समूह बनाते हैं। कौन-सा अक्षर-समूह युग्म उस समूह से संबंधित नहीं है?
(ध्यान दें: असंगत अक्षर-समूह, उस अक्षर-समूह में व्यंजनों/स्वरों की संख्या या उनके स्थान पर आधारित नहीं है।)

(1) QV - SV
(2) SO - PI ✔
(3) SX - UX
(4) FK - HK

QuickSarkari.com | WhatsApp Channel | Telegram: t.me/quick_sarkari

Q.37 A statement is given followed by two conclusions. Identify which of the given conclusions is/are true based on the given statement.
Statements: M ≥ P ≥ K, U < K, P < A
Conclusions:
I. M > U
II. U ≤ A
एक कथन के बाद दो निष्कर्ष दिए गए हैं। पहचानिए कि दिए गए कथन के आधार पर दिए गए निष्कर्षों में से कौन-सा/कौन-से सत्य है/हैं।
कथन: M ≥ P ≥ K, U < K, P < A
निष्कर्ष:
I. M > U
II. U ≤ A

(1) Only conclusion I is true. / केवल निष्कर्ष I सत्य है। ✔
(2) Only conclusion II is true. / केवल निष्कर्ष II सत्य है।
(3) Either conclusion I or II is true. / या तो निष्कर्ष I या II सत्य है।
(4) Both conclusions I and II are true. / निष्कर्ष I और II दोनों सत्य हैं।

Q.38 Based on the English alphabetical order, three of the following four letter-cluster pairs are alike in a certain way and thus form a group. Which letter- cluster pair DOES NOT belong to that group?
(Note: The odd one out is not based on the number of consonants/vowels or their position in the letter-cluster.)
अंग्रेज़ी वर्णमाला क्रम के आधार पर, निम्नलिखित चार अक्षर-समूह युग्मों में से तीन किसी निश्चित प्रकार से एकसमान हैं और इस प्रकार एक समूह बनाते हैं। कौन-सा अक्षर-समूह युग्म उस समूह से संबंधित नहीं है?
(ध्यान दें: असंगत अक्षर-समूह, उस अक्षर-समूह में व्यंजनों/स्वरों की संख्या या उनके स्थान पर आधारित नहीं है।)

(1) TR-ON
(2) VS-PO ✔
(3) HF-CB
(4) ZX-UT

Q.39 What will come in place of the question mark (?) in the following equation, if '+' and '−' are interchanged and '×' and '÷' are interchanged? 13 ÷ 2 + 17 − 68 × 4 = ?
यदि '+' और '−' को आपस में बदल दिया जाए तथा '×' और '÷' को आपस में बदल दिया जाए, तो निम्नलिखित समीकरण में प्रश्न चिह्न (?) के स्थान पर क्या आएगा?
13 ÷ 2 + 17 − 68 × 4 = ?

(1) 30
(2) 26 ✔
(3) 24
(4) 15

Q.40 Select the number from among the given options that can replace the question mark (?) in the following series.
30, 43, 58, 75, 94, ?
दिए गए विकल्पों में से उस संख्या का चयन कीजिए जो निम्नलिखित श्रृंखला में प्रश्न चिह्न (?) के स्थान पर आ सकती है।
30, 43, 58, 75, 94, ?

(1) 123
(2) 117
(3) 112
(4) 115 ✔

General Awareness

Q.41 Prime Minister Narendra Modi inaugurated the PM-SURAJ portal during an event organised by which ministry on 13 March 2024?

प्रधानमंत्री नरेंद्र मोदी ने 13 मार्च 2024 को किस मंत्रालय द्वारा आयोजित एक कार्यक्रम के दौरान PM-SURAJ पोर्टल का उद्घाटन किया?

(1) Ministry of Home Affairs / गृह मंत्रालय

(2) Ministry of New and Renewable Energy / नवीन और नवीकरणीय ऊर्जा मंत्रालय

(3) **Ministry of Social Justice and Empowerment / सामाजिक न्याय और अधिकारिता मंत्रालय ✔**

(4) Ministry of Rural Development / ग्रामीण विकास मंत्रालय

Q.42 Who is the Governor of Uttar Pradesh as of January 2023?

जनवरी 2023 तक की स्थिति के अनुसार, उत्तर प्रदेश के राज्यपाल कौन हैं?

(1) Ram Naik / राम नाईक

(2) **Anandiben Patel / आनंदीबेन पटेल ✔**

(3) Ajay Kumar Mishra / अजय कुमार मिश्रा

(4) Arif Mohammad Khan / आरिफ मोहम्मद खान

Q.43 How many languages are recognised as the official languages of India?

भारत की आधिकारिक भाषाओं के रूप में कितनी भाषाओं को मान्यता प्राप्त है?

(1) 26

(2) **22 ✔**

(3) 20

(4) 24

Q.44 In which of the following stadiums was the final of the Durand Cup 2024 played?

डूरंड कप 2024 का फाइनल निम्नलिखित में से किस स्टेडियम में खेला गया था?

(1) Wankhede Stadium - Mumbai / वानखेड़े स्टेडियम - मुंबई

(2) Arun Jaitley Stadium - New Delhi / अरुण जेटली स्टेडियम - नई दिल्ली

(3) M. Chinnaswamy Stadium - Bengaluru / एम. चिन्नास्वामी स्टेडियम - बेंगलुरु

(4) **Salt Lake Stadium - Kolkata / साल्ट लेक स्टेडियम - कोलकाता ✔**

Q.45 The Arya Samaj was founded in which of the following years?

आर्य समाज की स्थापना निम्नलिखित में से किस वर्ष में हुई थी?

(1) 1855

(2) 1865

(3) **1875 ✔**

(4) 1885

Q.46 How is the inflationary gap measured?

स्फीतिक अंतराल (inflationary gap) को कैसे मापा जाता है?

(1) By the difference between government expenditure and total income / सरकारी व्यय और कुल आय के बीच के अंतर द्वारा

(2) By the difference between disposable income and investment / प्रयोज्य आय और निवेश के बीच के अंतर द्वारा

(3) By the difference between demand and supply / माँग और पूर्ति के बीच के अंतर द्वारा

(4) **By the difference between the total money income and the output available for consumption / कुल मौद्रिक आय और उपभोग के लिए उपलब्ध उत्पादन के बीच के अंतर द्वारा ✔**

Q.47 Which of the following is included in the calculation of Gross Domestic Product (GDP) at market prices?
बाजार मूल्य पर सकल घरेलू उत्पाद (GDP) की गणना में निम्नलिखित में से किसे शामिल किया जाता है?

(1) Net income earned by residents from abroad for work and investment / विदेश से आए निवासियों द्वारा काम और निवेश के लिए अर्जित शुद्ध आय

(2) Value of inputs used in the production of other goods and services / अन्य वस्तुओं और सेवाओं के उत्पादन में प्रयुक्त आगतों का मूल्य

(3) Value of final goods and services produced in the domestic economy / घरेलू अर्थव्यवस्था में उत्पादित अंतिम वस्तुओं और सेवाओं का मूल्य ✔

(4) Payments made by the government to households, such as pensions and subsidies / सरकार द्वारा पेंशन और सब्सिडी जैसे परिवारों को किए जाने वाले भुगतान

Q.48 Which university was declared the winner of the Maulana Abul Kalam Azad (MAKA) Trophy in 2024?
2024 में किस विश्वविद्यालय को मौलाना अबुल कलाम आज़ाद (MAKA) ट्रॉफी का विजेता घोषित किया गया?

(1) Delhi University / दिल्ली विश्वविद्यालय

(2) Chandigarh University / चंडीगढ़ विश्वविद्यालय ✔

(3) Panjab University / पंजाब विश्वविद्यालय

(4) Lovely Professional University / लवली प्रोफेशनल यूनिवर्सिटी

Q.49 Who among the following was the first President of the Indian National Congress?
निम्नलिखित में से कौन भारतीय राष्ट्रीय कांग्रेस के प्रथम अध्यक्ष थे?

(1) A O Hume / ए. ओ. ह्यूम

(2) Womesh Chunder Bonnerjee / व्योमेश चंद्र बनर्जी ✔

(3) Dadabhai Naoroji / दादाभाई नौरोजी

(4) Surendranath Banerjee / सुरेंद्रनाथ बनर्जी

Q.50 In which of the following cities, has the SAFF Senior Athletics Championships been scheduled for October 2024?
SAFF सीनियर एथलेटिक्स चैंपियनशिप अक्टूबर 2024 में निम्नलिखित में से किस शहर में आयोजित होनी निर्धारित की गई थी?

(1) Patna / पटना

(2) Ranchi / राँची ✔

(3) Bhagalpur / भागलपुर

(4) Gaya / गया

Q.51 Under the influence of which social reformer was the 'Sati' system abolished?
किस समाज सुधारक के प्रभाव में 'सती' प्रथा का उन्मूलन किया गया था?

(1) Jyotirao Phule / ज्योतिराव फुले

(2) Mahatma Gandhi / महात्मा गांधी

(3) Swami Vivekananda / स्वामी विवेकानंद

(4) Raja Ram Mohan Roy / राजा राम मोहन राय ✔

Q.52 What is the nominal GDP if the real GDP is ₹300 crore and the price index is 120?
यदि वास्तविक GDP ₹300 करोड़ है और कीमत सूचकांक 120 है, तो नाममात्र GDP क्या है?

(1) ₹260 crore / ₹260 करोड़

(2) ₹180 crore / ₹180 करोड़

(3) ₹360 crore / ₹360 करोड़ ✔

(4) ₹420 crore / ₹420 करोड़

Q.53 Who took charge as the Controller General of Defence Accounts (CGDA) on March 1, 2025?

1 मार्च, 2025 को रक्षा लेखा महानियंत्रक (CGDA) का पदभार किसने ग्रहण किया?

(1) RR Mishra / आर.आर. मिश्रा

(2) **Dr Mayank Sharma / डॉ. मयंक शर्मा ✔**

(3) Alok Tiwari / आलोक तिवारी

(4) Rajnish Kumar / रजनीश कुमार

Q.54 Which of the following social reformers founded the Bharat Dharma Mahamandal to promote Hindu unity and religious reforms?

निम्नलिखित में से किस समाज सुधारक ने हिंदू एकता और धार्मिक सुधारों को बढ़ावा देने के लिए भारत धर्म महामंडल की स्थापना की थी?

(1) Raja Ram Mohan Roy / राजा राम मोहन राय

(2) **Pandit Din Dayalu Sharma / पंडित दीन दयालु शर्मा ✔**

(3) Swami Vivekananda / स्वामी विवेकानंद

(4) Chhatrapati Shivaji Maharaj / छत्रपति शिवाजी महाराज

Q.55 Name the India's first domain-specific large language model designed for the banking, financial services and insurance (BFSI) sector which was unveiled in May 2024.

बैंकिंग, वित्तीय सेवा और बीमा (BFSI) क्षेत्र के लिए डिज़ाइन किए गए भारत के पहले डोमेन-विशिष्ट लार्ज लैंग्वेज मॉडल का नाम बताइए, जिसका अनावरण मई 2024 में किया गया था।

(1) Llama

(2) **Sesame ✔**

(3) Palm

(4) Eliza

Q.56 When was the Central Institute of Classical Tamil (CICT) established?

केंद्रीय शास्त्रीय तमिल संस्थान (CICT) की स्थापना कब हुई थी?

(1) **2008 ✔**

(2) 2005

(3) 2010

(4) 2012

Q.57 Which of the following explains underemployment?

निम्नलिखित में से कौन-सा अल्परोजगार की व्याख्या करता है?

(1) A situation where individuals are working more hours than they wish to / ऐसी स्थिति जहाँ व्यक्ति अपनी इच्छा से अधिक घंटे काम कर रहे हों

(2) A situation where individuals are unemployed but are not actively looking for work / ऐसी स्थिति जहाँ व्यक्ति बेरोज़गार हों लेकिन सक्रिय रूप से काम की तलाश में न हों

(3) A situation where individuals are not looking for employment / ऐसी स्थिति जहाँ व्यक्ति रोज़गार की तलाश में न हों

(4) **A situation where individuals are working fewer hours than they wish to / ऐसी स्थिति जहाँ व्यक्ति अपनी इच्छा से कम घंटे काम कर रहे हों ✔**

Q.58 The Union Cabinet approved the continuation of the Umbrella Scheme on 'Women Safety' by allocating ₹1,179.72 crore to which period?

केंद्रीय मंत्रिमंडल ने 'महिला सुरक्षा' पर अम्ब्रेला योजना को ₹1,179.72 करोड़ आवंटित करके किस अवधि के लिए जारी रखने की मंज़ूरी दी?

(1) 2024-25

(2) 2025-26 ✔

(3) 2026-27

(4) 2027-28

Q.59 Which of the following initiatives was launched by the Government of India to promote the development of urban areas with better infrastructure and smart solutions?

बेहतर अवसंरचना और स्मार्ट समाधानों के साथ शहरी क्षेत्रों के विकास को बढ़ावा देने के लिए भारत सरकार द्वारा निम्नलिखित में से कौन-सी पहल शुरू की गई थी?

(1) Smart Cities Mission / स्मार्ट सिटी मिशन ✔

(2) Digital India Programme / डिजिटल इंडिया कार्यक्रम

(3) Swachh Bharat Abhiyan / स्वच्छ भारत अभियान

(4) Pradhan Mantri Jan Dhan Yojana / प्रधानमंत्री जन धन योजना

Q.60 What is added to the Gross Domestic Product at Market Prices to arrive at the Gross National Product at Market Prices?

बाज़ार कीमतों पर सकल राष्ट्रीय उत्पाद प्राप्त करने के लिए बाज़ार कीमतों पर सकल घरेलू उत्पाद में क्या जोड़ा जाता है?

(1) Net factor income from abroad / विदेश से शुद्ध साधन आय ✔

(2) Net Indirect Taxes / शुद्ध अप्रत्यक्ष कर

(3) Consumption of Fixed Capital / स्थिर पूंजी का उपभोग

(4) Net Domestic Product at Factor Cost / साधन लागत पर शुद्ध घरेलू उत्पाद

Q.61 In India which of the following is the Executive Head of the State?

भारत में निम्नलिखित में से कौन राज्य का कार्यकारी प्रमुख है?

(1) President of India / भारत के राष्ट्रपति ✔

(2) Chief Secretary, Government of India / मुख्य सचिव, भारत सरकार

(3) Prime Minister / प्रधानमंत्री

(4) Leader of the Opposition / विपक्ष के नेता

Q.62 Which of the following are non-flowering, vascular and spore-bearing plants that have the ability to remove contaminants through accumulation, chelation and detoxification mechanisms?

निम्नलिखित में से कौन-से पुष्पहीन, संवहनी और बीजाणु-धारी पौधे हैं, जिनमें संचयन, कीलेशन (chelation) और विषहरण क्रियाविधियों के माध्यम से संदूषकों को हटाने की क्षमता होती है?

(1) Cedrus deodara / सेड्रस देवदारा (Cedrus deodara)

(2) Common mallows / कॉमन मैलो (Common mallows)

(3) Ferns / फ़र्न ✔

(4) Nymphaeales / निम्फिएल्स (Nymphaeales)

Q.63 The tenure of the Union Council of Ministers depends on its majority in _____.

केंद्रीय मंत्रिपरिषद का कार्यकाल, _____ में से उसके बहुमत पर निर्भर करता है।

(1) Rajya Sabha / राज्यसभा

(2) State Legislative Assembly / राज्य विधानसभा

(3) **Lok Sabha / लोकसभा ✔**

(4) Chief Justice of India / भारत के मुख्य न्यायाधीश

Q.64 Tyndal effect can be seen in _____.

टिंडल प्रभाव _____ में देखा जा सकता है।

(1) sugar solution / चीनी के विलयन

(2) salt solution / नमक के विलयन

(3) copper sulphate solution / कॉपर सल्फेट के विलयन

(4) **milk / दूध ✔**

Q.65 Individual Satyagraha was officially inaugurated by Mahatma Gandhi in which of the following years?

महात्मा गांधी द्वारा व्यक्तिगत सत्याग्रह का आधिकारिक रूप से शुभारंभ निम्नलिखित में से किस वर्ष में किया गया था?

(1) 1942 AD / 1942 ई.

(2) 1945 AD / 1945 ई.

(3) **1940 AD / 1940 ई. ✔**

(4) 1947 AD / 1947 ई.

Q.66 Which of the following explains the nature of amendment in the Indian Constitution?

निम्नलिखित में से कौन भारतीय संविधान में संशोधन की प्रकृति की व्याख्या करता है?

(1) Neither rigid nor flexible / न तो कठोर और न ही लचीला

(2) **Partly rigid and partly flexible / आंशिक रूप से कठोर और आंशिक रूप से लचीला ✔**

(3) Flexible / लचीला

(4) Rigid / कठोर

Q.67 Keeping in view India's unity, integrity, multilingualism, multiculturalism and ethnic society, which of the following features has been included in the Constitution?

भारत की एकता, अखंडता, बहुभाषिकता, बहुसांस्कृतिकता और जातीय समाज को ध्यान में रखते हुए, संविधान में निम्नलिखित में से कौन-सी विशेषता शामिल की गई है?

(1) Fundamental Rights / मौलिक अधिकार

(2) Judicial Independence / न्यायिक स्वतंत्रता

(3) **Federalism / संघवाद ✔**

(4) Directive Principles / निर्देशक सिद्धांत

Q.68 According to the Trade Unions Act, 1926 (India), what is the age criterion for a person to be elected as the executive or any other office bearer in a registered trade union?

ट्रेड यूनियन अधिनियम, 1926 (भारत) के अनुसार, किसी पंजीकृत ट्रेड यूनियन में कार्यकारिणी सदस्य या किसी अन्य पदाधिकारी के रूप में निर्वाचित होने के लिए किसी व्यक्ति के लिए आयु मानदंड क्या है?

(1) 9 years / 9 वर्ष

(2) 35 years / 35 वर्ष

(3) **18 years / 18 वर्ष ✔**

(4) 12 years / 12 वर्ष

Q.69 What is the official language of Arunachal Pradesh?

अरुणाचल प्रदेश की आधिकारिक भाषा क्या है?

(1) Hindi / हिंदी

(2) Mizo / मिज़ो

(3) Bodo / बोडो

(4) **English / अंग्रेज़ी ✔**

Q.70 In what form can plants absorb Nitrogen?

पौधे नाइट्रोजन को किस रूप में अवशोषित कर सकते हैं?

(1) Gaseous form / गैसीय रूप

(2) Solid form / ठोस रूप

(3) **Soluble form / घुलनशील रूप ✔**

(4) Crystal form / क्रिस्टल रूप

Q.71 Which type of vegetation in India is found in areas with more than 200 cm of rainfall?

भारत में किस प्रकार की वनस्पति 200 cm से अधिक वर्षा वाले क्षेत्रों में पाई जाती है?

(1) Tropical Deciduous Forests / उष्णकटिबंधीय पर्णपाती वन

(2) Montane Forests / पर्वतीय वन

(3) **Tropical Evergreen Forests / उष्णकटिबंधीय सदाबहार वन ✔**

(4) Tropical Thorn Forests / उष्णकटिबंधीय कंटीले वन

Q.72 In the Indian philosophical tradition, which of the following options accurately describes the concept of Rina (debt)?

भारतीय दार्शनिक परंपरा में, निम्नलिखित में से कौन-सा विकल्प ऋण की अवधारणा का सटीक वर्णन करता है?

(1) A legal contract of the spirit of service / सेवा भाव का एक कानूनी अनुबंध

(2) A financial obligation to be repaid through rituals / अनुष्ठानों के माध्यम से चुकाया जाने वाला एक वित्तीय दायित्व

(3) **A moral and spiritual debt to be repaid to attain Moksha / मोक्ष प्राप्त करने के लिए चुकाया जाने वाला एक नैतिक और आध्यात्मिक ऋण ✔**

(4) A form of crime requiring purification / शुद्धिकरण की आवश्यकता वाला अपराध का एक रूप

Q.73 Body Mass Index (BMI) is defined as:

बॉडी मास इंडेक्स (BMI) को इस प्रकार परिभाषित किया जाता है:

(1) the weight in kilograms by the height in centimetres / किलोग्राम में भार को सेंटीमीटर में ऊँचाई से (भाग देकर)

(2) the weight in kilograms by the square of the height in centimetres / किलोग्राम में भार को सेंटीमीटर में ऊँचाई के वर्ग से (भाग देकर)

(3) the weight in kilograms by the height in metres / किलोग्राम में भार को मीटर में ऊँचाई से (भाग देकर)

(4) **the weight in kilograms by the square of the height in metres / किलोग्राम में भार को मीटर में ऊँचाई के वर्ग से (भाग देकर) ✔**

Q.74 Which of the following pairs is INCORRECTLY matched?

निम्नलिखित में से कौन-सा युग्म गलत सुमेलित है?

(1) Buland Darwaza – Akbar / बुलंद दरवाज़ा – अकबर

(2) Kabulibagh Masjid – Babur / काबुली बाग मस्जिद – बाबर

(3) Quwat-ul-Islam – Qutub-ud-din-aibak / कुव्वत-उल-इस्लाम – कुतुबुद्दीन ऐबक

(4) **Qila-i-Kuhna Masjid – Shah Jahan / किला-ए-कुहना मस्जिद – शाहजहाँ ✔**

Q.75 Which of the following physiographic divisions of India has the lowest average height?
भारत के निम्नलिखित भौतिक विभागों में से किसकी औसत ऊँचाई सबसे कम है?

(1) Indian Islands / भारतीय द्वीप समूह
(2) **Coastal Plains / तटीय मैदान ✔**
(3) Peninsular Plateau / प्रायद्वीपीय पठार
(4) Himalayan Mountains / हिमालय पर्वत

Q.76 Which of the following is the winter cropping season of India?
निम्नलिखित में से कौन-सा भारत का शीतकालीन फसल मौसम है?

(1) **Rabi / रबी ✔**
(2) Boro / बोरो
(3) Zaid / ज़ायद
(4) Kharif / खरीफ़

Q.77 What type of system of government does the Indian Constitution provide?
भारतीय संविधान किस प्रकार की शासन प्रणाली प्रदान करता है?

(1) **Parliamentary / संसदीय ✔**
(2) Unitary / एकात्मक
(3) Semi-democratic / अर्द्ध-लोकतांत्रिक
(4) Presidential / राष्ट्रपति

Q.78 How many domes are there on the top of the Birla Temple in Jaipur that represents different religions followed in India?
जयपुर स्थित बिड़ला मंदिर के शीर्ष पर कितने गुंबद हैं, जो भारत में अपनाए जाने वाले विभिन्न धर्मों का प्रतिनिधित्व करते हैं?

(1) 5
(2) 4
(3) 2
(4) **3 ✔**

Q.79 According to the osmotic theory of water absorption, root hairs absorb water when:
जल अवशोषण के परासरण सिद्धांत के अनुसार, मूल रोम जल का अवशोषण तब करते हैं जब:

(1) the solute concentration of soil is hypertonic to the root cells / मृदा का विलेय सांद्रण, मूल कोशिकाओं की तुलना में अतिपरासरी (hypertonic) होता है
(2) the solute concentration of soil is isotonic to the solute concentration of the root cells / मृदा का विलेय सांद्रण, मूल कोशिकाओं के विलेय सांद्रण के समपरासरी (isotonic) होता है
(3) the solute concentration of root cells is hypotonic to the soil / मूल कोशिकाओं का विलेय सांद्रण, मृदा की तुलना में अल्पपरासरी (hypotonic) होता है
(4) **the solute concentration of the root cells is high and water potential is low, the water from the surrounding environment enters within the root cells through endosmosis / मूल कोशिकाओं का विलेय सांद्रण अधिक होता है और जल विभव कम होता है, तब आसपास के वातावरण से जल अंतःपरासरण द्वारा मूल कोशिकाओं के भीतर प्रवेश करता है ✔**

QuickSarkari.com | WhatsApp Channel | Telegram: t.me/quick_sarkari

Q.80 The population census in India is conducted every decade. Which of the following years saw an interruption in this cycle, with the census NOT being conducted?

भारत में जनगणना प्रत्येक दशक में की जाती है। निम्नलिखित में से किस वर्ष इस चक्र में व्यवधान आया, जब जनगणना नहीं की गई?

(1) 2021 ✔

(2) 2011

(3) 2001

(4) 1991

Arithmetical and Numerical Ability

Q.81 A sum of money at simple interest doubles in 12.5 years. In how many years, at the same rate, will it be tripled?

साधारण ब्याज पर कोई धनराशि 12.5 वर्ष में दोगुनी हो जाती है। उसी दर पर, यह कितने वर्षों में तीन गुनी हो जाएगी?

(1) 30 years / 30 वर्ष

(2) 20 years / 20 वर्ष

(3) 18 years / 18 वर्ष

(4) 25 years / 25 वर्ष ✔

Q.82 Simplify the following expression: $(a^x/a^y)^z \times (a^y/a^z)^x \times (a^z/a^x)^y$ a is non-zero.

निम्नलिखित व्यंजक को सरल कीजिए: $(a^x/a^y)^z \times (a^y/a^z)^x \times (a^z/a^x)^y$ a शून्येतर है।

(1) 1 ✔

(2) 0

(3) −1

(4) a

Q.83 A seller sells a printer for ₹39,405 earning an 11% profit. He also sells a mobile phone for ₹13,625 earning a profit of 9%. What is the total profit (in ₹) he earned on selling a printer and a mobile phone?

एक विक्रेता एक प्रिंटर को ₹39,405 में बेचकर 11% लाभ अर्जित करता है। वह एक मोबाइल फोन को ₹13,625 में बेचकर 9% का लाभ भी अर्जित करता है। प्रिंटर और मोबाइल फोन को बेचने पर उसने कुल कितना लाभ (₹ में) अर्जित किया?

(1) 5,300

(2) 5,170

(3) 5,000

(4) 5,030 ✔

Q.84 Kanchan spends 40% of his income. If he saves ₹72,000, then his income (in ₹) is:

कंचन अपनी आय का 40% खर्च करता है। यदि वह ₹72,000 की बचत करता है, तो उसकी आय (₹ में) है:

(1) 1,19,000

(2) 28,800

(3) 1,20,000 ✔

(4) 1,21,000

Q.85 What is the difference between the compound interests on ₹10,000 for 1 year at 12% per annum compounded yearly and half–yearly?

₹10,000 पर 12% वार्षिक दर से 1 वर्ष के लिए वार्षिक रूप से संयोजित और अर्धवार्षिक रूप से संयोजित चक्रवृद्धि ब्याजों के बीच का अंतर क्या है?

(1) ₹360

(2) ₹36 ✔

(3) ₹400

(4) ₹40

Q.86 The average weight of a family of five members (in kg) whose weights are 40 kg, 49 kg, 56 kg, 63 kg and 37 kg is:

पाँच सदस्यों वाले एक परिवार, जिनके भार 40 kg, 49 kg, 56 kg, 63 kg और 37 kg हैं, का औसत भार (kg में) है:

(1) 48

(2) 50

(3) 51

(4) 49 ✔

Q.87 A person borrowed some money on simple interest. After 4 years, he returned 5/4 of the money to the lender to clear the loan. What was the rate of interest?

एक व्यक्ति ने साधारण ब्याज पर कुछ धन उधार लिया। 4 वर्ष बाद, उसने ऋण चुकाने के लिए ऋणदाता को धन का 5/4 भाग लौटाया। ब्याज की दर क्या थी?

(1) 3.25% p.a / 3.25% प्रति वर्ष

(2) 5.25% p.a / 5.25% प्रति वर्ष

(3) 4.25% p.a / 4.25% प्रति वर्ष

(4) 6.25% p.a / 6.25% प्रति वर्ष ✔

Q.88 The ratio of milk to water in a 176-litre mixture is 7 : 4. Find the quantity (in litres) of water that must be added to the mixture to make the ratio 1 : 1.

176 लीटर के एक मिश्रण में दूध और पानी का अनुपात 7 : 4 है। अनुपात को 1 : 1 बनाने के लिए मिश्रण में कितनी मात्रा (लीटर में) पानी मिलाना होगा, ज्ञात कीजिए।

(1) 40

(2) 46

(3) 53

(4) 48 ✔

Q.89 The average of the squares of the first 17 natural numbers is:

प्रथम 17 प्राकृत संख्याओं के वर्गों का औसत है:

(1) 104

(2) 106

(3) 105 ✔

(4) 107

Q.90 A person sells 90 articles and gains the SP of 15 articles. Find the gain percentage.

एक व्यक्ति 90 वस्तुएँ बेचता है और 15 वस्तुओं के विक्रय मूल्य के बराबर लाभ प्राप्त करता है। लाभ प्रतिशत ज्ञात कीजिए।

(1) 18%

(2) 30%

(3) 20% ✔

(4) 25%

Q.91 The population of a village was 1,60,000. It increased by 10% in the first year and increased by 20% in the second year. Its population after two years is _____.

एक गाँव की जनसंख्या 1,60,000 थी। पहले वर्ष में इसमें 10% की वृद्धि हुई और दूसरे वर्ष में 20% की वृद्धि हुई। दो वर्ष बाद इसकी जनसंख्या _____ है।

(1) 1,76,000

(2) 2,08,000

(3) 2,11,200 ✔

(4) 1,92,000

Q.92 A group of 30 students appeared in a test. The average score of 12 students is 64, and that of the rest is 66. What is the average score of the group?

30 विद्यार्थियों का एक समूह एक परीक्षा में शामिल हुआ। 12 विद्यार्थियों का औसत अंक 64 है, और शेष विद्यार्थियों का औसत अंक 66 है। समूह का औसत अंक क्या है?

(1) 65.2 ✔

(2) 66.2

(3) 64.2

(4) 63.2

Q.93 If the length of a rectangular tile is increased by 25% and breadth is decreased by 16%, then the percentage increase in the area of the tile is:

यदि एक आयताकार टाइल की लंबाई में 25% की वृद्धि की जाती है और चौड़ाई में 16% की कमी की जाती है, तो टाइल के क्षेत्रफल में प्रतिशत वृद्धि है:

(1) 10%

(2) 6.5%

(3) 5% ✔

(4) 9%

Q.94 The population of a city increased by 68,489 during a year. If the population of the city at the beginning of that year was 3,54,981, what was its population at the end of that year?

एक वर्ष के दौरान एक शहर की जनसंख्या में 68,489 की वृद्धि हुई। यदि उस वर्ष की शुरुआत में शहर की जनसंख्या 3,54,981 थी, तो उस वर्ष के अंत में इसकी जनसंख्या कितनी थी?

(1) 4,23,490

(2) 4,23,440

(3) 4,23,470 ✔

(4) 4,23,460

QuickSarkari.com | WhatsApp Channel | Telegram: t.me/quick_sarkari

Q.95 Study the given pie chart and answer the question that follows. The pie chart shows the marks scored by a student Mr. Raman in different subjects, Mathematics, Science, Civics, English and Hindi, in an examination. The values are given in degrees. Assume that the total marks obtained in the examination are 600.

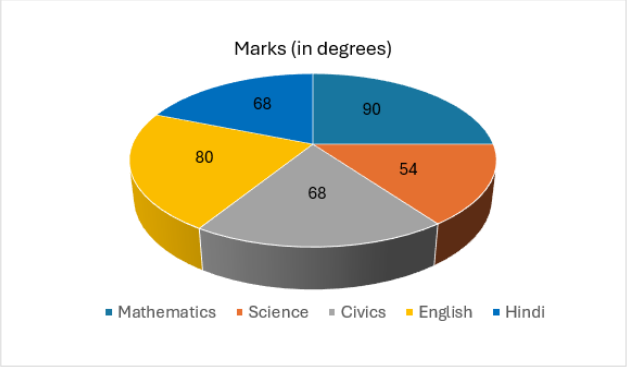

What is the percentage (rounded off to the nearest integer) of marks obtained in both English and Hindi?

दिए गए पाई चार्ट का अध्ययन कीजिए और उसके बाद दिए गए प्रश्न का उत्तर दीजिए। पाई चार्ट एक परीक्षा में एक छात्र श्री रमन द्वारा विभिन्न विषयों, गणित, विज्ञान, नागरिक शास्त्र, अंग्रेज़ी और हिंदी में प्राप्त अंकों को दर्शाता है। मान डिग्री में दिए गए हैं। मान लीजिए कि परीक्षा में प्राप्त कुल अंक 600 हैं।

अंग्रेज़ी और हिंदी दोनों में प्राप्त अंकों का प्रतिशत (निकटतम पूर्णांक तक पूर्णांकित) क्या है?

(1) 41% ✔
(2) 42%
(3) 40%
(4) 47%

Q.96 The population of a town 2 years ago was 17,500. Due to migration to other cities, it decreased at the rate of 4% per annum. Find its present population.

2 वर्ष पहले एक कस्बे की जनसंख्या 17,500 थी। अन्य शहरों में प्रवास के कारण, इसमें 4% वार्षिक दर से कमी हुई। इसकी वर्तमान जनसंख्या ज्ञात कीजिए।

(1) 16,800
(2) 11,200
(3) 16,128 ✔
(4) 15,482

Q.97 The number of prime numbers lying between 470 and 485, both included, is:

470 और 485 (दोनों को सम्मिलित करते हुए) के बीच स्थित अभाज्य संख्याओं की संख्या है:

(1) Four / चार
(2) One / एक ✔
(3) Two / दो
(4) Three / तीन

Q.98 The population of a village was 1,60,000. It increased by 10% in the first year and increased by 25% in the second year. Its population after two years is _____.

एक गाँव की जनसंख्या 1,60,000 थी। पहले वर्ष में इसमें 10% की वृद्धि हुई और दूसरे वर्ष में 25% की वृद्धि हुई। दो वर्ष बाद इसकी जनसंख्या _____ है।

(1) 1,76,000
(2) 2,16,000
(3) 2,20,000 ✔
(4) 2,00,000

QuickSarkari.com | WhatsApp Channel | Telegram: t.me/quick_sarkari

Q.99 The value of 3{(−1) + 20} + (−7 + 9)(2) − 12 is:

3{(−1) + 20} + (−7 + 9)(2) − 12 का मान है:

(1) 36

(2) 48

(3) 26

(4) 49 ✔

Q.100 Study the given pie chart and answer the question that follows. The pie chart indicates the different modes of transport (in degree-wise) used by students to go to an institution. There are 600 students studying in the institution.

Different modes of transport used by students

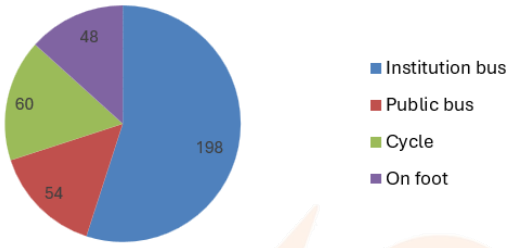

Find the number of students who travel by the public bus.

दिए गए पाई चार्ट का अध्ययन कीजिए और उसके बाद दिए गए प्रश्न का उत्तर दीजिए। पाई चार्ट किसी संस्थान में जाने के लिए विद्यार्थियों द्वारा उपयोग किए जाने वाले परिवहन के विभिन्न साधनों (डिग्री में) को दर्शाता है। संस्थान में 600 विद्यार्थी पढ़ते हैं।

सार्वजनिक बस से यात्रा करने वाले विद्यार्थियों की संख्या ज्ञात कीजिए।

(1) 100

(2) 120

(3) 90 ✔

(4) 80

Q.101 When the selling price of a toy game is ₹19,000, the shopkeeper incurs a loss of 5%. What should be the selling price (in ₹) of that toy game so as to gain 20%?

जब एक टॉय गेम का विक्रय मूल्य ₹19,000 है, तो दुकानदार को 5% की हानि होती है। 20% का लाभ प्राप्त करने के लिए उस टॉय गेम का विक्रय मूल्य (₹ में) क्या होना चाहिए?

(1) 20,000

(2) 24,000 ✔

(3) 20,720

(4) 20,620

Q.102 A tap can fill a cistern in 17 minutes, and another can empty it in 34 minutes. If both the taps are opened simultaneously, find the time taken to fill the cistern.

एक नल एक टंकी को 17 मिनट में भर सकता है, और दूसरा नल उसे 34 मिनट में खाली कर सकता है। यदि दोनों नल एक साथ खोल दिए जाएँ, तो टंकी को भरने में लगने वाला समय ज्ञात कीजिए।

(1) 25 minutes / 25 मिनट

(2) 12 minutes / 12 मिनट

(3) 34 minutes / 34 मिनट ✔

(4) 17 minutes / 17 मिनट

Q.103 A salesman fixes the marked price of an article as ₹4,000. He sells it to the customers at a discount of 20%. For cash payment, he gives a further discount of 5% on the already discounted price. If the cost price of the article is ₹3,000, find his gain or loss percentage.

एक विक्रेता किसी वस्तु का अंकित मूल्य ₹4,000 निर्धारित करता है। वह इसे ग्राहकों को 20% की छूट पर बेचता है। नकद भुगतान पर, वह पहले से छूट वाले मूल्य पर 5% की अतिरिक्त छूट देता है। यदि वस्तु का क्रय मूल्य ₹3,000 है, तो उसका लाभ या हानि प्रतिशत ज्ञात कीजिए।

(1) Loss 1 1/3 % / हानि 1 1/3 %

(2) Loss 2 1/5 % / हानि 2 1/5 %

(3) Gain 1 1/3 % / लाभ 1 1/3 % ✔

(4) Gain 2 1/5 % / लाभ 2 1/5 %

Q.104 If 7.5 : 13.5 :: 19 : x, find the value of x.

यदि 7.5 : 13.5 :: 19 : x है, तो x का मान ज्ञात कीजिए।

(1) 34.2 ✔

(2) 32.4

(3) 33.6

(4) 32.8

Q.105 3 men or 4 women can plough a field in 96 days, how long (in days) will 6 men and 7 women take to plough it?

3 पुरुष या 4 महिलाएँ एक खेत को 96 दिनों में जोत सकते हैं, तो 6 पुरुष और 7 महिलाएँ उसे जोतने में कितना समय (दिनों में) लेंगे?

(1) 26 3/5

(2) 25 3/5 ✔

(3) 21 3/5

(4) 24 3/5

Q.106 A square and equilateral triangle have equal perimeters. If the diagonal of the square is $12\sqrt{2}$ cm, then the area of the triangle is:

एक वर्ग और समबाहु त्रिभुज के परिमाप बराबर हैं। यदि वर्ग का विकर्ण $12\sqrt{2}$ cm है, तो त्रिभुज का क्षेत्रफल है:

(1) $64\sqrt{3}$ cm^2 ✔

(2) $12\sqrt{3}$ cm^2

(3) $42\sqrt{3}$ cm^2

(4) $16\sqrt{3}$ cm^2

Q.107 A solid cone has a volume equal to V cubic units. Its diameter is double its height. Then its height (in units) is:

एक ठोस शंकु का आयतन V घन इकाई है। इसका व्यास इसकी ऊँचाई का दोगुना है। तो इसकी ऊँचाई (इकाई में) है:

(1) $\sqrt[3]{(2V/(3\pi))}$

(2) $\sqrt[3]{(V/(3\pi))}$

(3) $\sqrt[3]{(3V/\pi)}$ ✔

(4) $\sqrt[3]{(V/\pi)}$

Q.108 When the selling price of a toy game is ₹19,000, the shopkeeper incurs a loss of 5%. What should be the selling price (in ₹) of that toy game so as to gain 19%?

जब एक टॉय गेम का विक्रय मूल्य ₹19,000 है, तो दुकानदार को 5% की हानि होती है। 19% का लाभ प्राप्त करने के लिए उस टॉय गेम का विक्रय मूल्य (₹ में) क्या होना चाहिए?

(1) 20,000
(2) 20,549
(3) 20,449
(4) **23,800** ✔

Q.109 The ratio of incomes of Seema and Darshan is 6 : 7. They save ₹18,000 and ₹9,000, respectively. If the ratio of their expenditures is 11 : 17, then what is the total expenditure (in ₹) of Seema and Darshan?

सीमा और दर्शन की आय का अनुपात 6 : 7 है। वे क्रमशः ₹18,000 और ₹9,000 की बचत करते हैं। यदि उनके व्यय का अनुपात 11 : 17 है, तो सीमा और दर्शन का कुल व्यय (₹ में) क्या है?

(1) **80,640** ✔
(2) 78,000
(3) 79,000
(4) 81,000

Q.110 Abhishek, Barun and Sohan together can complete a piece of work in 5 days. Abhishek and Barun together can complete one-third of the same work in 2 days. Barun and Sohan together can complete one-fifth of the same work in 2 days. In how many days can Abhishek and Sohan work together to complete the same?

अभिषेक, बरुण और सोहन मिलकर किसी कार्य को 5 दिनों में पूरा कर सकते हैं। अभिषेक और बरुण मिलकर उसी कार्य का एक-तिहाई भाग 2 दिनों में पूरा कर सकते हैं। बरुण और सोहन मिलकर उसी कार्य का पाँचवाँ भाग 2 दिनों में पूरा कर सकते हैं। अभिषेक और सोहन मिलकर उसी कार्य को कितने दिनों में पूरा कर सकते हैं?

(1) 6
(2) 7 1/3
(3) 8 1/3
(4) **7 1/2** ✔

Q.111 A motorist covers a total distance of 30 km in 54 minutes. For the first 10 minutes, he travels at a speed of x km/hr. For the next 21 minutes, he doubles his speed. In the final 23 minutes, he returns to his original speed of x km/hr. What is the value of x?

एक मोटर चालक 54 मिनट में कुल 30 km की दूरी तय करता है। पहले 10 मिनट तक, वह x km/hr की चाल से यात्रा करता है। अगले 21 मिनट तक, वह अपनी चाल दोगुनी कर लेता है। अंतिम 23 मिनट में, वह अपनी मूल चाल x km/hr पर लौट आता है। x का मान क्या है?

(1) **24** ✔
(2) 27
(3) 29
(4) 21

Q.112 The value of x in the proportion equation 11 : 77 :: 63 : x is:

समानुपात समीकरण 11 : 77 :: 63 : x में x का मान है:

(1) **441** ✔
(2) 439
(3) 432
(4) 444

Q.113 A semi-circular sheet of diameter 28 cm is bent to form an open conical cup. Find the capacity of the cup. (Use π = 22/7, √3 = 1.732) (Correct to two decimal places)

28 cm व्यास वाली एक अर्धवृत्ताकार शीट को मोड़कर एक खुला शंक्वाकार कप बनाया जाता है। कप की धारिता ज्ञात कीजिए। (π = 22/7, √3 = 1.732 का उपयोग कीजिए) (दशमलव के दो स्थानों तक सही)

(1) 722.89 cm^3

(2) 628.00 cm^3

(3) 728.00 cm^3

(4) **622.37 cm^3** ✔

Q.114 Two pipes, P1 and P2, together can fill a cistern in 15 minutes and P1 alone can fill it in 25 minutes. P2 alone can fill the cistern in:

दो पाइप, P1 और P2, मिलकर एक टंकी को 15 मिनट में भर सकते हैं और अकेला P1 उसे 25 मिनट में भर सकता है। अकेला P2 टंकी को कितने समय में भर सकता है?

(1) 20.25 minutes / 20.25 मिनट

(2) 35.5 minutes / 35.5 मिनट

(3) 10 minutes / 10 मिनट

(4) **37.5 minutes / 37.5 मिनट** ✔

Q.115 The base of a parallelogram is thrice its height. If the area of the parallelogram is 132 cm^2, find its height.

एक समांतर चतुर्भुज का आधार उसकी ऊँचाई का तीन गुना है। यदि समांतर चतुर्भुज का क्षेत्रफल 132 cm^2 है, तो उसकी ऊँचाई ज्ञात कीजिए।

(1) 4√11 cm

(2) 3√11 cm

(3) √11 cm

(4) **2√11 cm** ✔

Q.116 The ratio of incomes of Sanjay and Darshan is 5 : 3. They save ₹24,000 and ₹6,000, respectively. If the ratio of their expenditures is 6 : 5, then what is the expenditure (in ₹) of Sanjay?

संजय और दर्शन की आय का अनुपात 5 : 3 है। वे क्रमशः ₹24,000 और ₹6,000 की बचत करते हैं। यदि उनके व्यय का अनुपात 6 : 5 है, तो संजय का व्यय (₹ में) क्या है?

(1) 42,000

(2) **36,000** ✔

(3) 32,000

(4) 40,000

Q.117 How long will a 547-m long train, travelling at 73 km/hr, take to cross a 467-m long tunnel (round off your answer to the nearest second)?

73 km/hr की चाल से चल रही 547 m लंबी एक ट्रेन, 467 m लंबी एक सुरंग को पार करने में कितना समय लेगी (अपने उत्तर को निकटतम सेकंड तक पूर्णांकित कीजिए)?

(1) 45 seconds / 45 सेकंड

(2) **50 seconds / 50 सेकंड** ✔

(3) 42 seconds / 42 सेकंड

(4) 47 seconds / 47 सेकंड

QuickSarkari.com | WhatsApp Channel | Telegram: t.me/quick_sarkari

Q.118 From a taxi stand, two cabs depart in the same direction at a speed of 54 km/hr, with a time gap of 55 minutes between them. A person driving a racing car in the opposite direction meets the two cabs at an interval of 12 minutes. What is the speed (in km/hr) of the racing car?

एक टैक्सी स्टैंड से, दो कैब 54 km/hr की चाल से एक ही दिशा में 55 मिनट के समय अंतराल पर रवाना होती हैं। विपरीत दिशा में रेसिंग कार चला रहा एक व्यक्ति दोनों कैबों से 12 मिनट के अंतराल पर मिलता है। रेसिंग कार की चाल (km/hr में) क्या है?

(1) 184.9

(2) 194.6

(3) 193.5 ✔

(4) 200.9

Q.119 Ranu walks to his office, which is 6.5 km away from his home. In the morning, he takes 3 hours to reach the office. In the evening, while returning, he takes 20 minutes longer to cover the same distance. What is his average speed (in km/hr) for the entire round trip?

रानू अपने कार्यालय तक पैदल जाता है, जो उसके घर से 6.5 km दूर है। सुबह, उसे कार्यालय पहुँचने में 3 घंटे लगते हैं। शाम को लौटते समय, उसे उतनी ही दूरी तय करने में 20 मिनट अधिक लगते हैं। पूरी आने-जाने की यात्रा के लिए उसकी औसत चाल (km/hr में) क्या है?

(1) 2 11/19

(2) 3 1/19

(3) 3 11/19

(4) 2 1/19 ✔

Q.120 The marked price of an article is ₹9,200 and is available for ₹7,820 after availing a discount of k%. The value of k is:

एक वस्तु का अंकित मूल्य ₹9,200 है और k% की छूट प्राप्त करने के बाद यह ₹7,820 में उपलब्ध है। k का मान है:

(1) 12

(2) 15 ✔

(3) 20

(4) 18

English Language and Comprehension

Q.121 Select the most appropriate option to fill in the blank.
Joshua works _____ hard to make ends meet.

(1) sincerely

(2) minutely

(3) boastfully

(4) very ✔

Q.122 Select the most appropriate adverb to fill in the blank.
She runs very _____ in the mornings to stay fit.

(1) bitterly

(2) slowly ✔

(3) rudely

(4) radiantly

Q.123 Select the most appropriate option that rectifies the underlined preposition in the given sentence.
You can see the patient around 5 p.m. and 7 p.m.

(1) in
(2) **between ✔**
(3) on
(4) at

Q.124 Select the most appropriate option that rectifies the grammatical error(s) in the given sentence.
He is more kinder than his brother.

(1) kind
(2) kindest
(3) more kind
(4) **kinder ✔**

Q.125 Select the option that will improve the highlighted part of the given sentence.
This is the difficult issue we've faced so far.

(1) **the most difficult ✔**
(2) the much difficult
(3) the very difficult
(4) the more difficult

Q.126 Select the most appropriate adverb to fill in the blank.
This is the reason _____ I left.

(1) when
(2) so
(3) **why ✔**
(4) which

Q.127 Select the sentence that contains a grammatical error.

(1) I saw an owl sitting on the branch.
(2) **He found an European coin in his grandfather's collection. ✔**
(3) They needed a unique solution to the problem.
(4) She is an honest person who never lies.

Q.128 Select the most appropriate article to fill in the blank. If no article is needed, select 'No article required'.
The boys, exposing themselves to _____ rain, ran out to collect the frozen pearls.

(1) an
(2) No article required
(3) **the ✔**
(4) a

Quick Sarkari

Q.129 Select the most appropriate option to fill in the blank.
Sachin is a/an _____ player than Rahul.

(1) better ✔
(2) inferior
(3) worst
(4) troublesome

Q.130 Parts of a sentence are given below in jumbled order. Arrange the parts in the correct order to form a meaningful sentence.
O. that it is only when freedom of opinion
P. becomes the compulsion to debate that
Q. the seed which our forefathers planted has produced food
R. experience tells us

(1) ROPQ ✔
(2) QOPR
(3) OPQR
(4) ORQP

Q.131 The following sentence has been split into four segments. Identify the segment that contains a grammatical error.
She was taken to hospital for treatment after the accident.

(1) to hospital ✔
(2) She was taken
(3) for treatment
(4) after the accident

Q.132 Select the option that rectifies the INCORRECTLY used adverb.
She sings beautiful.

(1) more beautiful
(2) most beautiful
(3) beautifully ✔
(4) beauty

Q.133 Parts of a sentence are given below in jumbled order. Arrange the parts in the correct order to form a meaningful sentence.
O. the whole activity of learning; not only to gather information about various subjects
P. but to understand
Q. the function of teachers is to help the student to learn – not this or that subject only
R. but primarily to be complete human beings

(1) ORPQ
(2) RPOQ
(3) QPOR ✔
(4) POQR

QuickSarkari.com | WhatsApp Channel | Telegram: t.me/quick_sarkari

Q.134 Select the most appropriate article to fill in the blank. If no article is needed, select 'No article required'.
I own _____ book on the table.

(1) an
(2) **the ✔**
(3) No article required
(4) a

Q.135 Select the most appropriate option to fill in the blank.
He quickly jumped _____ conclusions without listening to the entire story.

(1) at
(2) over
(3) **to ✔**
(4) on

Q.136

Read the following passage carefully and answer the questions that follows.
Global warming is one of the most pressing issues of our time. It refers to the gradual increase in Earth's average surface temperature due to rising levels of greenhouse gases such as carbon dioxide, methane, and nitrous oxide. These gases trap heat in the atmosphere, creating a "greenhouse effect." Human activities like burning fossil fuels, deforestation, and industrial processes have significantly contributed to this phenomenon. The consequences of global warming are far-reaching. Melting ice caps, rising sea levels, extreme weather patterns, and loss of biodiversity are just a few of the alarming outcomes. These changes not only threaten natural ecosystems but also pose significant risks to human societies, particularly those in vulnerable regions.
Efforts to combat global warming include reducing carbon emissions, adopting renewable energy sources, and protecting forests. However, addressing this challenge requires global cooperation and a commitment to sustainable practices. Global warming serves as a reminder of humanity's shared responsibility to protect the planet for future generations.

What tone does the author adopt in the passage?

(1) Persuasive
(2) Neutral
(3) Alarmist
(4) **Informative ✔**

Q.137

Read the following passage carefully and answer the questions that follows.
Global warming is one of the most pressing issues of our time. It refers to the gradual increase in Earth's average surface temperature due to rising levels of greenhouse gases such as carbon dioxide, methane, and nitrous oxide. These gases trap heat in the atmosphere, creating a "greenhouse effect." Human activities like burning fossil fuels, deforestation, and industrial processes have significantly contributed to this phenomenon. The consequences of global warming are far-reaching. Melting ice caps, rising sea levels, extreme weather patterns, and loss of biodiversity are just a few of the alarming outcomes. These changes not only threaten natural ecosystems but also pose significant risks to human societies, particularly those in vulnerable regions.
Efforts to combat global warming include reducing carbon emissions, adopting renewable energy sources, and protecting forests. However, addressing this challenge requires global cooperation and a commitment to sustainable practices. Global warming serves as a reminder of humanity's shared responsibility to protect the planet for future generations.

What is the most appropriate title for the passage?

(1) The Science of Greenhouse Gases
(2) **Global Warming: Causes and Consequences ✔**
(3) The Impact of Industrial Processes
(4) Renewable Energy Solutions

Q.138

Read the following passage carefully and answer the questions that follows.
Global warming is one of the most pressing issues of our time. It refers to the gradual increase in Earth's average surface temperature due to rising levels of greenhouse gases such as carbon dioxide, methane, and nitrous oxide. These gases trap heat in the atmosphere, creating a "greenhouse effect." Human activities like burning fossil fuels, deforestation, and industrial processes have significantly contributed to this phenomenon. The consequences of global warming are far-reaching. Melting ice caps, rising sea levels, extreme weather patterns, and loss of biodiversity are just a few of the alarming outcomes. These changes not only threaten natural ecosystems but also pose significant risks to human societies, particularly those in vulnerable regions.
Efforts to combat global warming include reducing carbon emissions, adopting renewable energy sources, and protecting forests. However, addressing this challenge requires global cooperation and a commitment to sustainable practices. Global warming serves as a reminder of humanity's shared responsibility to protect the planet for future generations.

What inference can be drawn from the passage?

(1) Global warming is irreversible.
(2) **Human activities have a significant impact on the environment. ✔**
(3) Renewable energy alone can stop global warming.
(4) Global warming affects only natural ecosystems.

Q.139

Read the following passage carefully and answer the questions that follows.
Global warming is one of the most pressing issues of our time. It refers to the gradual increase in Earth's average surface temperature due to rising levels of greenhouse gases such as carbon dioxide, methane, and nitrous oxide. These gases trap heat in the atmosphere, creating a "greenhouse effect." Human activities like burning fossil fuels, deforestation, and industrial processes have significantly contributed to this phenomenon. The consequences of global warming are far-reaching. Melting ice caps, rising sea levels, extreme weather patterns, and loss of biodiversity are just a few of the alarming outcomes. These changes not only threaten natural ecosystems but also pose significant risks to human societies, particularly those in vulnerable regions.
Efforts to combat global warming include reducing carbon emissions, adopting renewable energy sources, and protecting forests. However, addressing this challenge requires global cooperation and a commitment to sustainable practices. Global warming serves as a reminder of humanity's shared responsibility to protect the planet for future generations.

What is the central theme of the passage?

(1) The global impact of rising sea levels
(2) The dangers of industrial processes on biodiversity
(3) The role of renewable energy in combating climate change
(4) **Understanding global warming and how to address it ✔**

Q.140

Read the following passage carefully and answer the questions that follows.
Global warming is one of the most pressing issues of our time. It refers to the gradual increase in Earth's average surface temperature due to rising levels of greenhouse gases such as carbon dioxide, methane, and nitrous oxide. These gases trap heat in the atmosphere, creating a "greenhouse effect." Human activities like burning fossil fuels, deforestation, and industrial processes have significantly contributed to this phenomenon. The consequences of global warming are far-reaching. Melting ice caps, rising sea levels, extreme weather patterns, and loss of biodiversity are just a few of the alarming outcomes. These changes not only threaten natural ecosystems but also pose significant risks to human societies, particularly those in vulnerable regions.
Efforts to combat global warming include reducing carbon emissions, adopting renewable energy sources, and protecting forests. However, addressing this challenge requires global cooperation and a commitment to sustainable practices. Global warming serves as a reminder of humanity's shared responsibility to protect the planet for future generations.

Which fact is mentioned in the passage?

(1) **Deforestation is a significant contributor to global warming. ✔**
(2) Global warming is caused solely by natural factors.
(3) Renewable energy is more expensive than fossil fuels.
(4) Rising sea levels are only a minor concern.

Q.141 Select the most appropriate meaning of the given proverb.
Money talks

(1) Money can buy a good speaker.

(2) Money cannot remain silent.

(3) Money has power to influence others. ✔

(4) Money can talk but it cannot walk.

Q.142 Parts of a sentence are given below in jumbled order. Arrange the parts in the correct order to form a meaningful sentence.
P. when an alarm clock
S. by my bed
Q. rings on the table
R. I get up in the morning

(1) RPQS ✔

(2) PSQR

(3) RSPQ

(4) PQRS

Q.143 Select the most appropriate meaning of the given proverb.
You can't have your cake and eat it too.

(1) You must finish your food before starting something new.

(2) Sharing your possessions will bring more happiness.

(3) It's important to choose carefully.

(4) You can't enjoy two benefits at the same time. ✔

Q.144 Select the option that can be used as a one-word substitute for the given group of words.
A medical professional who specialises in the diagnosis and treatment of mental disorders

(1) Psychologist

(2) Psychiatrist ✔

(3) Neurologist

(4) Surgeon

Q.145 Select the most appropriate option that can be used as a one-word substitute for the given group of word.
A person who speaks more than one language

(1) Patrimony

(2) Polyglot ✔

(3) Philogynist

(4) Linguist

Q.146 Select the option that can be used as a one-word substitute for the given group of words.
A person who acts against religion

(1) Heretic ✔

(2) Rebel

(3) Apostate

(4) Virtuoso

Q.147 Select the most appropriate synonym of the underlined word in the given sentence.
She had good fluency in the Spanish language.

(1) Eloquence ✔
(2) Contentment
(3) Grandeur
(4) Belief

Q.148 Select the most appropriate meaning of the given proverb.
Least said, soonest mended.

(1) The quieter you are, the more people will listen to you.
(2) Bad situations can be quickly forgotten if people stop talking about them. ✔
(3) A problem can only be solved by discussing it in detail.
(4) Create difficulty through continuous silence.

Q.149 Select the most appropriate meaning of the given proverb.
Four eyes see more than two.

(1) Teamwork is always better for solving complicated problems.
(2) Two people working together can often accomplish more. ✔
(3) The more people work the faster the work gets done.
(4) Two people will bring in two contrasting perspectives.

Q.150 Select the most appropriate synonym of the given word.
Apposite

(1) Distress
(2) Assent
(3) Relevant ✔
(4) Terrific

Q.151 Select the most appropriate ANTONYM of the given word.
Judicious

(1) Unstable
(2) Unlawful
(3) Impure
(4) Indiscreet ✔

Q.152 Select the option that can be used as a one-word substitute for the given phrase.
A medical professional who specialises in the diagnosis and treatment of mental disorders

(1) Neurologist
(2) Psychiatrist ✔
(3) Psychologist
(4) Surgeon

Q.153 Select the correct spelling of the underlined INCORRECTLY spelt word in the given sentence.
They recived a letter from the President.

(1) riceived
(2) recieved
(3) reeceived
(4) **received ✔**

Q.154 Select the most appropriate ANTONYM of the given word.
Expel

(1) Spew
(2) **Admit ✔**
(3) Deny
(4) Inhibit

Q.155 Select the INCORRECTLY spelt word.

(1) vilify
(2) wrought
(3) **surmisse ✔**
(4) despised

Q.156

Read the following passage and answer the questions.
The Pandya dynasty was one of the most influential ancient Tamil dynasties. Its prominence is documented in Sangam literature, which provides insights into its social, political, and economic structure. Women played an essential role, often excelling in arts, education, and governance. Temples were not only religious centres but also hubs for education, arts, and public discourse. The Tamil Sangam assemblies nurtured literature, poetry, and scholarly debates, reflecting a vibrant cultural life. The Pandyas were known for their efficient administration, with the king at the helm supported by a council of ministers. The kingdom was divided into regions governed by local chieftains. Military strength was a key aspect of Pandya rule, helping them resist invasions and expand their territory. Their capital, Madurai, was a significant centre of governance and culture. The Pandyas had a robust economy driven by agriculture, especially rice cultivation. Trade flourished due to their strategic location near coastal areas, enabling maritime connections with Rome, Greece, Southeast Asia, and China. Items like pearls, spices, ivory, and textiles were highly sought after. The Pandya dynasty's integration of governance, culture, and economy created a legacy that significantly influenced South Indian history.

How does the Pandya dynasty’s emphasis on cultural patronage relate to modern nation-building?

(1) It highlights the irrelevance of cultural investments in governance.
(2) **It demonstrates how cultural and artistic development strengthens national identity. ✔**
(3) It suggests that ancient models of governance have no modern parallels
(4) It proves that trade is superior to cultural investments in economic development.

QuickSarkari.com | WhatsApp Channel | Telegram: t.me/quick_sarkari

Q.157

Read the following passage and answer the questions.
The Pandya dynasty was one of the most influential ancient Tamil dynasties. Its prominence is documented in Sangam literature, which provides insights into its social, political, and economic structure. Women played an essential role, often excelling in arts, education, and governance. Temples were not only religious centres but also hubs for education, arts, and public discourse. The Tamil Sangam assemblies nurtured literature, poetry, and scholarly debates, reflecting a vibrant cultural life. The Pandyas were known for their efficient administration, with the king at the helm supported by a council of ministers. The kingdom was divided into regions governed by local chieftains. Military strength was a key aspect of Pandya rule, helping them resist invasions and expand their territory. Their capital, Madurai, was a significant centre of governance and culture. The Pandyas had a robust economy driven by agriculture, especially rice cultivation. Trade flourished due to their strategic location near coastal areas, enabling maritime connections with Rome, Greece, Southeast Asia, and China. Items like pearls, spices, ivory, and textiles were highly sought after. The Pandya dynasty's integration of governance, culture, and economy created a legacy that significantly influenced South Indian history.

Identify the structure of the passage.

(1) A chronological account
(2) An argumentative structure
(3) A comparative structure
(4) A thematic progression ✔

Q.158

Read the following passage and answer the questions.
The Pandya dynasty was one of the most influential ancient Tamil dynasties. Its prominence is documented in Sangam literature, which provides insights into its social, political, and economic structure. Women played an essential role, often excelling in arts, education, and governance. Temples were not only religious centres but also hubs for education, arts, and public discourse. The Tamil Sangam assemblies nurtured literature, poetry, and scholarly debates, reflecting a vibrant cultural life. The Pandyas were known for their efficient administration, with the king at the helm supported by a council of ministers. The kingdom was divided into regions governed by local chieftains. Military strength was a key aspect of Pandya rule, helping them resist invasions and expand their territory. Their capital, Madurai, was a significant centre of governance and culture. The Pandyas had a robust economy driven by agriculture, especially rice cultivation. Trade flourished due to their strategic location near coastal areas, enabling maritime connections with Rome, Greece, Southeast Asia, and China. Items like pearls, spices, ivory, and textiles were highly sought after. The Pandya dynasty's integration of governance, culture, and economy created a legacy that significantly influenced South Indian history.

Identify the fact mentioned in the passage.

(1) Madurai's significance was limited to religious activities.
(2) Temples were multi-functional, serving as cultural and educational hubs. ✔
(3) The Pandyas neglected military expansion in favour of trade.
(4) Women in Pandya society were confined to domestic roles.

QuickSarkari.com | WhatsApp Channel | Telegram: t.me/quick_sarkari

Q.159

Read the following passage and answer the questions.
The Pandya dynasty was one of the most influential ancient Tamil dynasties. Its prominence is documented in Sangam literature, which provides insights into its social, political, and economic structure. Women played an essential role, often excelling in arts, education, and governance. Temples were not only religious centres but also hubs for education, arts, and public discourse. The Tamil Sangam assemblies nurtured literature, poetry, and scholarly debates, reflecting a vibrant cultural life. The Pandyas were known for their efficient administration, with the king at the helm supported by a council of ministers. The kingdom was divided into regions governed by local chieftains. Military strength was a key aspect of Pandya rule, helping them resist invasions and expand their territory. Their capital, Madurai, was a significant centre of governance and culture. The Pandyas had a robust economy driven by agriculture, especially rice cultivation. Trade flourished due to their strategic location near coastal areas, enabling maritime connections with Rome, Greece, Southeast Asia, and China. Items like pearls, spices, ivory, and textiles were highly sought after. The Pandya dynasty's integration of governance, culture, and economy created a legacy that significantly influenced South Indian history.

Select the most appropriate ANTONYM of the given word.
Flourished

(1) Persisted
(2) Thrived
(3) Deteriorated ✔
(4) Expanded

Q.160

Read the following passage and answer the questions.
The Pandya dynasty was one of the most influential ancient Tamil dynasties. Its prominence is documented in Sangam literature, which provides insights into its social, political, and economic structure. Women played an essential role, often excelling in arts, education, and governance. Temples were not only religious centres but also hubs for education, arts, and public discourse. The Tamil Sangam assemblies nurtured literature, poetry, and scholarly debates, reflecting a vibrant cultural life. The Pandyas were known for their efficient administration, with the king at the helm supported by a council of ministers. The kingdom was divided into regions governed by local chieftains. Military strength was a key aspect of Pandya rule, helping them resist invasions and expand their territory. Their capital, Madurai, was a significant centre of governance and culture. The Pandyas had a robust economy driven by agriculture, especially rice cultivation. Trade flourished due to their strategic location near coastal areas, enabling maritime connections with Rome, Greece, Southeast Asia, and China. Items like pearls, spices, ivory, and textiles were highly sought after. The Pandya dynasty's integration of governance, culture, and economy created a legacy that significantly influenced South Indian history.

What can be inferred from "prioritised maritime trade over inland trade"?

(1) Inland roads were undeveloped.
(2) They lacked agricultural resources for local trade.
(3) Maritime trade provided access to wealthier markets like Rome and Greece. ✔
(4) Inland trade was considered culturally inferior.

QuickSarkari.com | WhatsApp Channel | Telegram: t.me/quick_sarkari

Hindi Language and Comprehension

Q.161 निम्नलिखित में से शुद्ध वाक्य का चयन कीजिए-

(1) रमेश और सुरेश बाजार से फल और सब्जीया लेकर आए है।

(2) रमेश और सुरेश बाजार से फलो और सब्जियां लेकर आए हैं।

(3) रमेश और सुरेश बाजर से फल और सब्जियां लेकर आए।

(4) **रमेश और सुरेश बाजार से फल और सब्जियां लेकर आए हैं। ✔**

Q.162 निम्नलिखित वाक्यों में से तीन वाक्य विशेष संदर्भ के कारण एक दूसरे संबन्धित हैं किन्तु एक वाक्य भिन्न है अतः उस अतिरिक्त वाक्य का चयन करें।

देखो दीपक पेड़ से आम तोड़ रहा है। वह एक आम मनीष को दे रहा है। मनीष मज़े से खा रहा है। दीपक बाकी बचे आम लेकर जा रहा है।

(1) देखो दीपक पेड़ से आम तोड़ रहा है।

(2) **मनीष मज़े से खा रहा है। ✔**

(3) वह एक आम मनीष को दे रहा है।

(4) दीपक बाकी बचे आम लेकर जा रहा है।

Q.163 निम्नलिखित मुहावरे का सही अर्थ पहचानें।

कटी पतंग होना

(1) यायावर होना

(2) मित्रता बढ़ाना

(3) **निराश्रित होना ✔**

(4) भ्रमण करना

Q.164 उचित विशेषण का प्रयोग कर वाक्य पूर्ण करें - आपके सूट में_____कपड़ा लगेगा

(1) दस क्विंटल

(2) दस लीटर

(3) **दो मीटर ✔**

(4) चालीस

Q.165 निम्नलिखित मुहावरे का सही अर्थ पहचानें।

आड़े हाथ लेना

(1) दमन करना

(2) हाथों से दबाना

(3) **खरी-खरी सुनाना ✔**

(4) बदला लेना

Q.166 निम्नलिखित में से शुद्ध वाक्य का चयन कीजिये-

(1) संस्कृति में भारत की समृद्धि और विविधता का अद्वितीय संयोजन है।

(2) समृद्धि का और विविधता का अद्वितीय भारत की संस्कृति में संयोजन है।

(3) **भारत की संस्कृति में विविधता और समृद्धि का अद्वितीय संयोजन है। ✔**

(4) संयोजन में भारत की संस्कृति अद्वितीय का और समृद्धि विविधता है।

Q.167 निम्नलिखित वाक्यांश के आधार पर सार्थक शब्द का चयन करें।
उपकार के लिए किया गया उपकार ____

(1) प्रत्युपकार ✔
(2) कृपा
(3) कृतघ्न
(4) दया

Q.168 दिए गए वाक्य में उचित क्रिया शब्द का चयन करके रिक्त स्थान की पूर्ति करें- हिमालय की तलहटी से सागर की लहरें बार-बार _____ हैं।

(1) बिखरती
(2) सँभलती
(3) लहराती
(4) टकराती ✔

Q.169 निम्नलिखित वाक्यों में से तीन वाक्य विशेष संदर्भ के कारण एक दूसरे संबन्धित हैं किन्तु एक वाक्य भिन्न है अतः उस अतिरिक्त वाक्य का चयन करें।
आपसे अनुरोध है कृपया मेरा यह कार्य कर दें? मुझे कल ही कहीं जाना था। क्या मेरा कार्य अन्य से पहले कर देंगे? मैं पहले ही बहुत देर कर चुका हूँ।

(1) आपसे अनुरोध है कृपया मेरा यह कार्य कर दें?
(2) मुझे कल ही कहीं जाना था। ✔
(3) मैं पहले ही बहुत देर कर चुका हूँ।
(4) क्या मेरा कार्य अन्य से पहले कर देंगे?

Q.170 निम्नलिखित में से शुद्ध वाक्य का चयन कीजिये-

(1) वैज्ञानिक समाज के अनुसंधान विकास में महत्वपूर्ण भूमिका निभाता है।
(2) भूमिका महत्वपूर्ण समाज के वैज्ञानिक अनुसंधान विकास में निभाता है।
(3) वैज्ञानिक अनुसंधान समाज के विकास में महत्वपूर्ण भूमिका निभाता है। ✔
(4) अनुसंधान समाज के विकास वैज्ञानिक में भूमिका महत्वपूर्ण निभाता है।

Q.171 अपादान कारक से वाक्य पूर्ण करें - पानी गिलास _____ छलक गया।

(1) को
(2) से ✔
(3) में
(4) ने

Q.172 निम्नलिखित वाक्य खंड क्रम से लिखें।
1. प्रतियोगिता है,
2. हिस्सा लेना होगा
3. तुम्हें उसमें
4. तुम्हारे स्कूल में

(1) 1342
(2) 2431
(3) 4132 ✔
(4) 1234

Q.173 उचित विशेषण से वाक्य पूर्ण करें - _____ आदमी को यहाँ बुलाओ

(1) उस ✔

(2) वे

(3) यह

(4) मेरे

Q.174 निम्नलिखित वाक्यांश के आधार पर सार्थक शब्द का चयन करें।
जो भोजन रोगी के लिए निषिद्ध है_____

(1) दही

(2) अपथ्य ✔

(3) नेपथ्य

(4) वसा

Q.175 उचित कारक चिह्न चुनकर निम्नलिखित वाक्य के रिक्त स्थान की पूर्ति करें।- 'वह दीवाली ___ यहाँ टिकने का नहीं।

(1) के

(2) ने

(3) से

(4) तक ✔

Q.176

निम्नलिखित गद्यांश को ध्यानपूर्वक पढ़ें और पूछे गए प्रश्नों के उत्तर के लिए दिए गए विकल्पों में से सर्वाधिक उपयुक्त विकल्प को चुनिए- मानव को मानव के रूप में सम्मानित करके ही हम जातीयता, प्रांतीयता, राष्ट्रीयता और अंतरराष्ट्रीयता के भेद को तोड़ सकते हैं। आज मानव मानव से दूर हटता जा रहा है। वह भूल चुका है कि देश, धर्म और जाति के भिन्न होते हुए भी हम सर्वप्रथम मानव हैं और समान हैं तथा सभी की भावनाएँ और लक्ष्य एक ही हैं। आज धर्म, देश, सत्ता, धन आदि का भेद होने से एक मानव दूसरे मानव को मानव ही नहीं मानता।
कभी-कभी स्वधर्मी विधर्मी को स्वदेशी विदेशी को, धनिक निर्धन को तथा विद्वान निरक्षर को इंसान ही नहीं समझता है और वह भूल जाता है कि दूसरे को भी समान रूप से इच्छा, भूख - प्यास सताते हैं तथा उसे भी प्रेम और आदर चाहिए। वह भूल जाता है कि दूसरे में भी स्वाभिमान का पुट है, उसे भी विश्राम की आवश्यकता है और उसे भी अपने बच्चे प्रिय है अथवा वह भी अपनी संतान के लिए कुछ करना चाहता है।
सत्ताधारी मनुष्य दूसरों को कुचलकर सुख-सुविधाओं पर एकाधिकार कर लेना चाहता है, लेकिन एक आकाश के नीचे रहने वाले इंसान तो सब एक हैं, भले ही कोई कुदाल लेकर श्रमिक का कार्य करता हो, कोई कलम लेकर दफ़्तर का; किंतु लक्ष्य एक है-समाज का अभ्युदय और विकास । कार्य-भेद होते हुए भी सब इंसानी बिरादरी के एक - से हकदार हैं। सब भाई-भाई ही तो हैं, सब ही अपने-अपने स्थान पर विशेष हैं।
मानव का नाता ही श्रेष्ठ नाता है। किसी को 'नौकर' कहकर पुकारना मानव का ही अपमान है। 'सहयोगी', 'सहायक' अथवा 'सस्नेह' उसका नाम कहकर संबोधन करना मधुर और प्रिय है।

सत्ताधारी मनुष्य क्या कर लेना चाहता है?

(1) सुख-सुविधाओं पर एकाधिकार ✔

(2) समाज पर अधिकार

(3) मित्रों और सहयोगियों पर एकाधिकार

(4) सत्ता पर अधिकार

Q.177

निम्नलिखित गद्यांश को ध्यानपूर्वक पढ़ें और पूछे गए प्रश्नों के उत्तर के लिए दिए गए विकल्पों में से सर्वाधिक उपयुक्त विकल्प को चुनिए- मानव को मानव के रूप में सम्मानित करके ही हम जातीयता, प्रांतीयता, राष्ट्रीयता और अंतरराष्ट्रीयता के भेद को तोड़ सकते हैं। आज मानव मानव से दूर हटता जा रहा है। वह भूल चुका है कि देश, धर्म और जाति के भिन्न होते हुए भी हम सर्वप्रथम मानव हैं और समान हैं तथा सभी की भावनाएँ और लक्ष्य एक ही हैं। आज धर्म, देश, सत्ता, धन आदि का भेद होने से एक मानव दूसरे मानव को मानव ही नहीं मानता।
कभी-कभी स्वधर्मी विधर्मी को स्वदेशी विदेशी को, धनिक निर्धन को तथा विद्वान निरक्षर को इंसान ही नहीं समझता है और वह भूल जाता है कि दूसरे को भी समान रूप से इच्छा, भूख - प्यास सताते हैं तथा उसे भी प्रेम और आदर चाहिए। वह भूल जाता है कि दूसरे में भी स्वाभिमान का पुट है, उसे भी विश्राम की आवश्यकता है और उसे भी अपने बच्चे प्रिय है अथवा वह भी अपनी संतान के लिए कुछ करना चाहता है।
सत्ताधारी मनुष्य दूसरों को कुचलकर सुख-सुविधाओं पर एकाधिकार कर लेना चाहता है, लेकिन एक आकाश के नीचे रहने वाले इंसान तो सब एक हैं, भले ही कोई कुदाल लेकर श्रमिक का कार्य करता हो, कोई कलम लेकर दफ़्तर का; किंतु लक्ष्य एक है-समाज का अभ्युदय और विकास । कार्य-भेद होते हुए भी सब इंसानी बिरादरी के एक - से हकदार हैं। सब भाई-भाई ही तो हैं, सब ही अपने-अपने स्थान पर विशेष हैं।
मानव का नाता ही श्रेष्ठ नाता है। किसी को 'नौकर' कहकर पुकारना मानव का ही अपमान है। 'सहयोगी', 'सहायक' अथवा 'सस्नेह' उसका नाम कहकर संबोधन करना मधुर और प्रिय है।

गद्यांश में प्रयुक्त 'आकाश' शब्द का सर्वाधिक उपयुक्त विलोम शब्द है -

(1) नरक
(2) गगन
(3) भूमि
(4) **पाताल ✔**

Q.178

निम्नलिखित गद्यांश को ध्यानपूर्वक पढ़ें और पूछे गए प्रश्नों के उत्तर के लिए दिए गए विकल्पों में से सर्वाधिक उपयुक्त विकल्प को चुनिए- मानव को मानव के रूप में सम्मानित करके ही हम जातीयता, प्रांतीयता, राष्ट्रीयता और अंतरराष्ट्रीयता के भेद को तोड़ सकते हैं। आज मानव मानव से दूर हटता जा रहा है। वह भूल चुका है कि देश, धर्म और जाति के भिन्न होते हुए भी हम सर्वप्रथम मानव हैं और समान हैं तथा सभी की भावनाएँ और लक्ष्य एक ही हैं। आज धर्म, देश, सत्ता, धन आदि का भेद होने से एक मानव दूसरे मानव को मानव ही नहीं मानता।
कभी-कभी स्वधर्मी विधर्मी को स्वदेशी विदेशी को, धनिक निर्धन को तथा विद्वान निरक्षर को इंसान ही नहीं समझता है और वह भूल जाता है कि दूसरे को भी समान रूप से इच्छा, भूख - प्यास सताते हैं तथा उसे भी प्रेम और आदर चाहिए। वह भूल जाता है कि दूसरे में भी स्वाभिमान का पुट है, उसे भी विश्राम की आवश्यकता है और उसे भी अपने बच्चे प्रिय है अथवा वह भी अपनी संतान के लिए कुछ करना चाहता है।
सत्ताधारी मनुष्य दूसरों को कुचलकर सुख-सुविधाओं पर एकाधिकार कर लेना चाहता है, लेकिन एक आकाश के नीचे रहने वाले इंसान तो सब एक हैं, भले ही कोई कुदाल लेकर श्रमिक का कार्य करता हो, कोई कलम लेकर दफ़्तर का; किंतु लक्ष्य एक है-समाज का अभ्युदय और विकास । कार्य-भेद होते हुए भी सब इंसानी बिरादरी के एक - से हकदार हैं। सब भाई-भाई ही तो हैं, सब ही अपने-अपने स्थान पर विशेष हैं।
मानव का नाता ही श्रेष्ठ नाता है। किसी को 'नौकर' कहकर पुकारना मानव का ही अपमान है। 'सहयोगी', 'सहायक' अथवा 'सस्नेह' उसका नाम कहकर संबोधन करना मधुर और प्रिय है।

मानव को मानव के रूप में सम्मानित करने के लिए हमें क्या करना होगा?

(1) जातीयता, प्रांतीयता, राष्ट्रीयता और अंतरराष्ट्रीयता का भेद बढ़ाना
(2) **जातीयता, प्रांतीयता, राष्ट्रीयता और अंतरराष्ट्रीयता का भेद तोड़ना ✔**
(3) जातीयता, प्रांतीयता, राष्ट्रीयता और अंतरराष्ट्रीयता के भेदों को फैलाना
(4) जातीयता, प्रांतीयता. राष्ट्रीयता और अंतरराष्ट्रीयता का भेद जगाना

QuickSarkari.com | WhatsApp Channel | Telegram: t.me/quick_sarkari

Q.179

निम्नलिखित गद्यांश को ध्यानपूर्वक पढ़ें और पूछे गए प्रश्नों के उत्तर के लिए दिए गए विकल्पों में से सर्वाधिक उपयुक्त विकल्प को चुनिए- मानव को मानव के रूप में सम्मानित करके ही हम जातीयता, प्रांतीयता, राष्ट्रीयता और अंतरराष्ट्रीयता के भेद को तोड़ सकते हैं। आज मानव मानव से दूर हटता जा रहा है। वह भूल चुका है कि देश, धर्म और जाति के भिन्न होते हुए भी हम सर्वप्रथम मानव हैं और समान हैं तथा सभी की भावनाएँ और लक्ष्य एक ही हैं। आज धर्म, देश, सत्ता, धन आदि का भेद होने से एक मानव दूसरे मानव को मानव ही नहीं मानता।
कभी-कभी स्वधर्मी विधर्मी को स्वदेशी विदेशी को, धनिक निर्धन को तथा विद्वान निरक्षर को इंसान ही नहीं समझता है और वह भूल जाता है कि दूसरे को भी समान रूप से इच्छा, भूख - प्यास सताते हैं तथा उसे भी प्रेम और आदर चाहिए। वह भूल जाता है कि दूसरे में भी स्वाभिमान का पुट है, उसे भी विश्राम की आवश्यकता है और उसे भी अपने बच्चे प्रिय है अथवा वह भी अपनी संतान के लिए कुछ करना चाहता है।
सत्ताधारी मनुष्य दूसरों को कुचलकर सुख-सुविधाओं पर एकाधिकार कर लेना चाहता है, लेकिन एक आकाश के नीचे रहने वाले इंसान तो सब एक हैं, भले ही कोई कुदाल लेकर श्रमिक का कार्य करता हो, कोई कलम लेकर दफ़्तर का; किंतु लक्ष्य एक है-समाज का अभ्युदय और विकास । कार्य-भेद होते हुए भी सब इंसानी बिरादरी के एक - से हकदार हैं। सब भाई-भाई ही तो हैं, सब ही अपने-अपने स्थान पर विशेष हैं।
मानव का नाता ही श्रेष्ठ नाता है। किसी को 'नौकर' कहकर पुकारना मानव का ही अपमान है। 'सहयोगी', 'सहायक' अथवा 'सस्नेह' उसका नाम कहकर संबोधन करना मधुर और प्रिय है।

एक मानव दूसरे मानव को मानव क्यों नहीं मानता?

(1) साक्षर और निरक्षर को एक ही मानने का कारण
(2) **धर्म, देश, सत्ता, धन आदि का भेद होने का कारण ✔**
(3) स्वाभिमान का भाव होने का कारण
(4) परस्पर प्रेम और आदर का भाव होने का कारण

Q.180

निम्नलिखित गद्यांश को ध्यानपूर्वक पढ़ें और पूछे गए प्रश्नों के उत्तर के लिए दिए गए विकल्पों में से सर्वाधिक उपयुक्त विकल्प को चुनिए- मानव को मानव के रूप में सम्मानित करके ही हम जातीयता, प्रांतीयता, राष्ट्रीयता और अंतरराष्ट्रीयता के भेद को तोड़ सकते हैं। आज मानव मानव से दूर हटता जा रहा है। वह भूल चुका है कि देश, धर्म और जाति के भिन्न होते हुए भी हम सर्वप्रथम मानव हैं और समान हैं तथा सभी की भावनाएँ और लक्ष्य एक ही हैं। आज धर्म, देश, सत्ता, धन आदि का भेद होने से एक मानव दूसरे मानव को मानव ही नहीं मानता।
कभी-कभी स्वधर्मी विधर्मी को स्वदेशी विदेशी को, धनिक निर्धन को तथा विद्वान निरक्षर को इंसान ही नहीं समझता है और वह भूल जाता है कि दूसरे को भी समान रूप से इच्छा, भूख - प्यास सताते हैं तथा उसे भी प्रेम और आदर चाहिए। वह भूल जाता है कि दूसरे में भी स्वाभिमान का पुट है, उसे भी विश्राम की आवश्यकता है और उसे भी अपने बच्चे प्रिय है अथवा वह भी अपनी संतान के लिए कुछ करना चाहता है।
सत्ताधारी मनुष्य दूसरों को कुचलकर सुख-सुविधाओं पर एकाधिकार कर लेना चाहता है, लेकिन एक आकाश के नीचे रहने वाले इंसान तो सब एक हैं, भले ही कोई कुदाल लेकर श्रमिक का कार्य करता हो, कोई कलम लेकर दफ़्तर का; किंतु लक्ष्य एक है-समाज का अभ्युदय और विकास । कार्य-भेद होते हुए भी सब इंसानी बिरादरी के एक - से हकदार हैं। सब भाई-भाई ही तो हैं, सब ही अपने-अपने स्थान पर विशेष हैं।
मानव का नाता ही श्रेष्ठ नाता है। किसी को 'नौकर' कहकर पुकारना मानव का ही अपमान है। 'सहयोगी', 'सहायक' अथवा 'सस्नेह' उसका नाम कहकर संबोधन करना मधुर और प्रिय है।

गद्यांश का सर्वाधिक उपयुक्त शीर्षक है -

(1) सहयोगी
(2) कुदाल और श्रमिक
(3) **मानव मानव का नाता ✔**
(4) धनिक और निर्धन

Q.181 निम्नलिखित वाक्य को ध्यानपूर्वक पढ़ें और वाक्य में त्रुटि की पहचान कर वाक्य शुद्ध करें।
दिसंबर मे हम सब कोल्लू-मनाली घूमने जाएगे।

(1) **दिसंबर में हम सब कुल्लू-मनाली घूमने जाएंगे। ✔**
(2) दसंबर को हम सब कुल्ल-मनली घूमने जाएंगी।
(3) दिसंबर में हमं सब कुल्लू-मनाली घोमने जाएंगे।
(4) दिसबर में हम सभ कुल्लू-मानाली घूमने जाएंगे।

Q.182 निम्नलिखित लोकोक्ति के उपयुक्त अर्थ का चयन करेंकंगाली में आटा गीला

(1) अभाव में भी अभाव ✔

(2) स्थितियों का विपरीत होना

(3) समय खराब होना

(4) झूठ बार बार नहीं चलता

Q.183 निम्नलिखित वाक्य को ध्यानपूर्वक पढ़ें और वाक्य में त्रुटि की पहचान कर वाक्य शुद्ध करें।
मटा-पिता कि सेवा करना बच्चो का कर्तव्य है।

(1) माता-पिता की सेवा करना बच्चों का कर्तव्य है। ✔

(2) मटा-पिता कि सेवा करना बच्चो से कर्तव्य हैं।

(3) मता-पिता कि सेवा करना बच्चो का कर्तव्य हो।

(4) मटा-पीता का सेवा करना बच्चो का कर्तव है।

Q.184 निम्नलिखित विकल्पों में से आधा का तत्सम शब्द पहचानें।

(1) अधि

(2) अभय

(3) अर्द

(4) अर्द्ध ✔

Q.185 'वसन' का पर्यायवाची शब्द है -

(1) पुस्तक

(2) शस्त्र

(3) कपड़ा ✔

(4) भोजन

Q.186 'आग्रह' का विलोम शब्द पहचानें-

(1) निष्काम

(2) आग्रहहीनता

(3) निश्चय

(4) दुराग्रह ✔

Q.187 निम्नलिखित विकल्पों में से बदरंग का अनेकार्थि शब्द पहचानें।

(1) बेरंग

(2) अरंग

(3) बदला

(4) कुरंग ✔

Q.188 निम्नलिखित वाक्य को ध्यानपूर्वक पढ़ें और वाक्य में त्रुटि की पहचान कर वाक्य शुद्ध करें।
तुम छट पर जाओ, काबूतरों को दाना दाल दो।

(1) तुम छत पर जाओ, कबूतरों को दाना डाल दो। ✔

(2) तुम छत्त पर जाओ, कबूतरों को दाना डालो दो।

(3) तम छट पर जाए, कबूतारों को दान डालो दें।

(4) तुम छत पर से जाओ, कबूतरो को दाना दाल दो।

Quick Sarkari

Q.189 'उल्टा तवा' मुहावरे का अर्थ है-

(1) अत्यधिक गरीब

(2) अत्यधिक काला ✔

(3) अत्यधिक कलुष

(4) अत्यधिक गरम

Q.190 'अमृत' का विलोम शब्द पहचानें-

(1) जल

(2) संजीवनी

(3) विष ✔

(4) प्यास

Q.191 निम्नलिखित विकल्पों में से खैरियत का अनेकार्थि शब्द पहचानें।

(1) सही

(2) अच्छा

(3) सुखी

(4) कुशल ✔

Q.192 निम्नलिखित विकल्पों में से अंगूठा का तत्सम शब्द पहचानें।

(1) अगुश

(2) अंगुष्ठ ✔

(3) अंगशु

(4) शीर्ष

Q.193 'आकाश का चाँद हाथ आना' मुहावरे का अर्थ है-

(1) दुर्लभ वस्तु मिलना ✔

(2) वश में करना

(3) बाधा दूर होना

(4) उन्नति करना

Q.194 'अल्पज्ञ' का विलोम शब्द होगा –

(1) सर्वज्ञ ✔

(2) अज्ञ

(3) अज्ञेय

(4) अवज्ञेय

Answer Key / उत्तर कुंजी

1 4	**2** 1	**3** 1	**4** 2	**5** 4	**6** 3	**7** 1	**8** 4	**9** 3	**10** 4	**11** 4	**12** 3	**13** 4	**14** 3	**15** 1
16 3	**17** 2	**18** 2	**19** 4	**20** 3	**21** 1	**22** 2	**23** 3	**24** 3	**25** 1	**26** 2	**27** 1	**28** 3	**29** 4	**30** 1
31 1	**32** 2	**33** 1	**34** 3	**35** 1	**36** 2	**37** 1	**38** 2	**39** 2	**40** 4	**41** 3	**42** 2	**43** 2	**44** 4	**45** 3
46 4	**47** 3	**48** 2	**49** 2	**50** 2	**51** 4	**52** 3	**53** 2	**54** 2	**55** 2	**56** 1	**57** 4	**58** 2	**59** 1	**60** 1

61 1	**62** 3	**63** 3	**64** 4	**65** 3	**66** 2	**67** 3	**68** 3	**69** 4	**70** 3	**71** 3	**72** 3	**73** 4	**74** 4	**75** 2
76 1	**77** 1	**78** 4	**79** 4	**80** 1	**81** 4	**82** 1	**83** 4	**84** 3	**85** 2	**86** 4	**87** 4	**88** 4	**89** 3	**90** 3
91 3	**92** 1	**93** 3	**94** 3	**95** 1	**96** 3	**97** 2	**98** 3	**99** 4	**100** 3	**101** 2	**102** 3	**103** 3	**104** 1	**105** 2
106 1	**107** 3	**108** 4	**109** 1	**110** 4	**111** 1	**112** 1	**113** 4	**114** 4	**115** 4	**116** 2	**117** 2	**118** 3	**119** 4	**120** 2
121 4	**122** 2	**123** 2	**124** 4	**125** 1	**126** 3	**127** 2	**128** 3	**129** 1	**130** 1	**131** 1	**132** 3	**133** 3	**134** 2	**135** 3
136 4	**137** 2	**138** 2	**139** 4	**140** 1	**141** 3	**142** 1	**143** 4	**144** 2	**145** 2	**146** 1	**147** 1	**148** 2	**149** 2	**150** 3
151 4	**152** 2	**153** 4	**154** 2	**155** 3	**156** 2	**157** 4	**158** 2	**159** 3	**160** 3	**161** 4	**162** 2	**163** 3	**164** 3	**165** 3
166 3	**167** 1	**168** 4	**169** 2	**170** 3	**171** 2	**172** 3	**173** 1	**174** 2	**175** 4	**176** 1	**177** 4	**178** 2	**179** 2	**180** 3
181 1	**182** 1	**183** 1	**184** 4	**185** 3	**186** 4	**187** 4	**188** 1	**189** 2	**190** 3	**191** 4	**192** 2	**193** 1	**194** 1	

Quick Sarkari

Participant ID	
Participant Name	
Test Center Name	
Test Date	
Test Time	1:00 PM - 3:00 PM
Subject	LABORATORY ATTENDANT

Section : **General intelligence and Reasoning Ability**

Q.1 **Using the same logic as applied for the first two pairs of letter-number clusters, select the letter-number cluster that can replace the question mark (?) in the third pair.**

HARSH313 - AHSR3H31
GEETA424 - EGTE4A42
JEEVA737 - ?

Ans
✗ 1. EJEV7A73
✗ 2. EJVEA773
✗ 3. EJEVA737
✓ 4. EJVE7A73

Question ID : **441009351868**
Option 1 ID : **4410091373822**
Option 2 ID : **4410091373824**
Option 3 ID : **4410091373825**
Option 4 ID : **4410091373823**

Q.2 निम्नलिखित संख्या श्रृंखला का संदर्भ लीजिए और उसके बाद दिए गए प्रश्न का उत्तर दीजिए। गिनती केवल बाएँ से दाएँ की जानी चाहिए।

(बाएँ) 6, 9, 7, 6, 8, 4, 3, 2, 1, 5, 9, 8, 6, 3, 2, 8, 4, 5 (दाएँ)

निम्नलिखित में से कौन-सा अंक, दाएँ से चौथे अंक के बाएँ छठा अंक है?

Ans
✓ 1. 1
✗ 2. 2
✗ 3. 9
✗ 4. 5

Question ID : **441009351874**
Option 1 ID : **4410091373848**
Option 2 ID : **4410091373846**
Option 3 ID : **4410091373849**
Option 4 ID : **4410091373847**

Q.3 **Eight candidates, Ashwin, Supreet, Padmaja, Kaveri, Rohit, Mohan, Kartikeyan and Rihanna, are seated for a group discussion around a round table, facing the centre. Rohit is sitting third to the right of Ashwin. Mohan is sitting third to the left of Ashwin. Kartikeyan has Padmaja and Rohit as immediate neighbours. Kaveri has Rihanna and Mohan as immediate neighbours. In total, how many people are seated between Padmaja and Mohan when counted from the right of Padmaja?**

Ans
✓ 1. 3
✗ 2. 2
✗ 3. 5
✗ 4. 4

Question ID : **441009351747**
Option 1 ID : **4410091373351**
Option 2 ID : **4410091373350**
Option 3 ID : **4410091373353**
Option 4 ID : **4410091373352**

Q.4 **Using the same logic as applied for the first two pairs of letter-number clusters, select the letter-number cluster that can replace the question mark (?) in the third pair.**

S1V2N3 - S3V2N1
P2E4N6 - P6E4N2
Y3E5T7 - ?

Ans
✗ 1. Y5E3T7
✓ 2. Y7E5T3
✗ 3. Y7T5E3
✗ 4. Y7E3T5

Question ID : **441009351867**
Option 1 ID : **4410091373818**
Option 2 ID : **4410091373820**
Option 3 ID : **4410091373821**
Option 4 ID : **4410091373819**

Q.5 **Using the same logic as applied for the first two pairs of letter clusters, select the letter cluster that can replace the question mark (?) in the third pair.**

DIVERT - IDEVTR
MUDDLE - UMDDEL
DIVINE - ?

Ans
✗ 1. ENIVID
✗ 2. IDVIEN
✗ 3. EGWGOF
✓ 4. IDIVEN

Question ID : **441009351864**
Option 1 ID : **4410091373807**
Option 2 ID : **4410091373809**
Option 3 ID : **4410091373808**
Option 4 ID : **4410091373806**

Q.6 **Each of A, B, C, D, E, F and G goes to dance on a different day of a week, starting from Monday and ending on Sunday of the same week. D goes to dance on Tuesday. Exactly two people go to dance between A and D. Exactly one person goes to dance between A and G. B goes to dance on the day immediately after G. Only one person goes to dance between C and G. F goes to dance on one of the days after E. On which day does F go to dance?**

Ans
✗ 1. Thursday
✗ 2. Friday
✓ 3. Sunday
✗ 4. Monday

Question ID : **441009351714**
Option 1 ID : **4410091373218**
Option 2 ID : **4410091373219**
Option 3 ID : **4410091373220**
Option 4 ID : **4410091373221**

Q.7 **Seven boxes A, B, C, D, E, F and G are kept one over the other but not necessarily in the same order. F is kept second from the bottom. Only three boxes are kept between F and B. E is kept at one of the positions below F. Only D is kept between B and G. C is kept at one of the positions above B. How many boxes are kept below A?**

Ans
✓ 1. 2
✗ 2. 4
✗ 3. 3
✗ 4. 1

Question ID : **441009351304**
Option 1 ID : **4410091371579**
Option 2 ID : **4410091371581**
Option 3 ID : **4410091371580**
Option 4 ID : **4410091371578**

Q.8 **Refer to the following number series and answer the question that follows. Counting to be done from left to right only. (All numbers are single-digit numbers only.)**

(Left) 4 8 5 3 6 2 1 5 1 7 9 8 3 5 6 2 7 3 7 8 4 3 6 9 7 8 3 6 2 (Right)

How many such odd digits are there each of which is immediately preceded by an even digit and also immediately followed by an odd digit?

Ans
✗ 1. One
✗ 2. Two
✗ 3. Three
✓ 4. More than three

Question ID : **441009351280**
Option 1 ID : **4410091371483**
Option 2 ID : **4410091371484**
Option 3 ID : **4410091371485**
Option 4 ID : **4410091371482**

QuickSarkari.com | WhatsApp Channel | Telegram: t.me/quick_sarkari

Q.9 Seven boxes A, B, C, D, E, F and G are kept one over the other but not necessarily in the same order. Only E is kept above D. Only two boxes are kept between D and G. Only B is kept below A. C is not kept immediately above G. How many boxes are kept below G?

Question ID : **441009351303**
Option 1 ID : **4410091371576**
Option 2 ID : **4410091371574**
Option 3 ID : **4410091371575**
Option 4 ID : **4410091371577**

Ans
- ✗ 1. 3
- ✗ 2. 1
- ✓ 3. 2
- ✗ 4. 4

Q.10 Each of the letters in the word KEYBOARD is arranged in the English alphabetical order. How many letters are there in the English alphabet that are between the third letter from the left and the fourth letter from the right in the newly formed word?

Question ID : **441009351851**
Option 1 ID : **4410091373754**
Option 2 ID : **4410091373756**
Option 3 ID : **4410091373757**
Option 4 ID : **4410091373755**

Ans
- ✗ 1. Five
- ✗ 2. Seven
- ✗ 3. Eight
- ✓ 4. Six

Q.11 In a certain code language, 'PANT' is coded as '7591' and 'NICE' is coded as '8274'. What is the code for 'N' in the given code language?

Question ID : **441009982008**
Option 1 ID : **4410093880500**
Option 2 ID : **4410093880501**
Option 3 ID : **4410093880499**
Option 4 ID : **4410093880498**

Ans
- ✗ 1. 8
- ✗ 2. 9
- ✗ 3. 2
- ✓ 4. 7

Q.12 Refer to the following number series and answer the question that follows. Counting to be done from left to right only.
(All numbers are single-digit numbers only.)

(Left) 4 8 3 1 2 5 3 8 5 9 7 3 9 2 5 3 4 1 7 5 6 8 2 6 2 (Right)

How many such even digits are there each of which is immediately preceded by an odd digit and also immediately followed by an even digit?

Question ID : **441009351276**
Option 1 ID : **4410091371469**
Option 2 ID : **4410091371467**
Option 3 ID : **4410091371466**
Option 4 ID : **4410091371468**

Ans
- ✗ 1. 0
- ✗ 2. 2
- ✓ 3. 1
- ✗ 4. 3

Q.13 J is daughter of L. L is mother of K. K is the daughter of X. X is the son of I. Y is the father of L's husband. How is Y related to I?

Question ID : **441009351854**
Option 1 ID : **4410091373768**
Option 2 ID : **4410091373769**
Option 3 ID : **4410091373767**
Option 4 ID : **4410091373766**

Ans
- ✗ 1. Father
- ✗ 2. Brother
- ✗ 3. Mother
- ✓ 4. Husband

Q.14 Refer to the following number series and answer the question that follows. Counting to be done from left to right only.
(All numbers are single-digit numbers only.)

(Left) 7 3 8 4 3 6 9 7 4 5 2 4 1 4 2 1 7 9 8 5 4 2 5 7 9 8 5 2 5 8 4 6 (Right)

How many such odd digits are there each of which is immediately preceded by an even digit and also immediately followed by an odd digit?

Question ID : **441009351281**
Option 1 ID : **4410091371487**
Option 2 ID : **4410091371486**
Option 3 ID : **4410091371489**
Option 4 ID : **4410091371488**

Ans
- ✗ 1. One
- ✗ 2. More than three
- ✓ 3. Three
- ✗ 4. Two

Q.15 In a certain code language, 'BEAR' is coded as '7591' and 'TAPS' is coded as '8274'. What is the code for 'A' in the given code language?

Question ID : **441009982010**
Option 1 ID : **4410093880506**
Option 2 ID : **4410093880509**
Option 3 ID : **4410093880507**
Option 4 ID : **4410093880508**

Ans
- ✓ 1. 7
- ✗ 2. 9
- ✗ 3. 2
- ✗ 4. 8

Q.16 Seven boxes A, B, C, D, E, F and G are kept one over the other but not necessarily in the same order. Only E is kept above G. Only F is kept between G and D. Only A is kept below C. How many boxes are kept below D?

Question ID : **441009351302**
Option 1 ID : **4410091371573**
Option 2 ID : **4410091371571**
Option 3 ID : **4410091371572**
Option 4 ID : **4410091371570**

Ans
- ✗ 1. 4
- ✗ 2. 2
- ✓ 3. 3
- ✗ 4. 1

Q.17 In a certain code language, 'BLOW' is coded as '7359' and 'WISE' is coded as '8764'. What is the code for 'W' in the given code language?

Question ID : **441009351625**
Option 1 ID : **4410091372863**
Option 2 ID : **4410091372862**
Option 3 ID : **4410091372864**
Option 4 ID : **4410091372865**

Ans
- ✗ 1. 6
- ✓ 2. 7
- ✗ 3. 8
- ✗ 4. 9

Q.18 Seven people, P, Q, R, S, T, U and V, are sitting in a straight line, facing north. Only three people sit between T and U. Only one person (U) sits to the right of S. R sits third to the right of Q. Q is not an immediate neighbour of T. V is not an immediate neighbour of S. Who is sitting at the second position from the extreme left end of the line?

Question ID : **441009351752**
Option 1 ID : **4410091373372**
Option 2 ID : **4410091373370**
Option 3 ID : **4410091373373**
Option 4 ID : **4410091373371**

Ans
- ✗ 1. T
- ✓ 2. V
- ✗ 3. S
- ✗ 4. P

Q.19 In a certain code language,

'A – B' means 'A is the daughter of B',
'A + B' means 'A is the husband of B',
'A * B' means 'A is the brother of B' and
'A % B' means 'A is the wife of B'.

How is A related to B if 'A % B * C'?

Question ID : **441009351796**
Option 1 ID : **4410091373539**
Option 2 ID : **4410091373541**
Option 3 ID : **4410091373540**
Option 4 ID : **4410091373538**

Ans
- ✗ 1. Sister
- ✗ 2. Brother's daughter
- ✗ 3. Brother's wife
- ✓ 4. Wife

QuickSarkari.com | WhatsApp Channel | Telegram: t.me/quick_sarkari

Q.20 Refer to the given number and symbol series and answer the question that follows. Counting to be done from left to right only.

(Left) 3 @ * 5 2 # $ & 7 1 2 (Right)

If we remove the number '2' from the given series, then in the new series thus formed, how many symbols will be immediately followed by a number?

Question ID : **441009351830**
Option 1 ID : **4410091373673**
Option 2 ID : **4410091373672**
Option 3 ID : **4410091373671**
Option 4 ID : **4410091373670**

Ans
- ✗ 1. Three
- ✗ 2. Zero
- ✓ 3. Two
- ✗ 4. One

Section : **General intelligence and Reasoning Ability1**

Q.1 Based on the English alphabetical order, three of the following four letter-cluster pairs are alike in a certain way and thus form a group. Which letter-cluster pair DOES NOT belong to that group?
(Note: The odd one out is not based on the number of consonants/vowels or their position in the letter-cluster.)

Question ID : **441009351581**
Option 1 ID : **4410091372688**
Option 2 ID : **4410091372686**
Option 3 ID : **4410091372687**
Option 4 ID : **4410091372689**

Ans
- ✓ 1. DK - PU
- ✗ 2. BG - EH
- ✗ 3. FK - IL
- ✗ 4. SX - VY

Q.2 If 2 is added to each odd digit and 1 is subtracted from each even digit in the number 61532478, how many digits will appear more than once in the new number thus formed?

Question ID : **441009350847**
Option 1 ID : **4410091369753**
Option 2 ID : **4410091369752**
Option 3 ID : **4410091369751**
Option 4 ID : **4410091369750**

Ans
- ✗ 1. Four
- ✓ 2. Three
- ✗ 3. Two
- ✗ 4. One

Q.3 Select the set in which the numbers are related in the same way as are the numbers of the following sets.
(NOTE: Operations should be performed on the whole numbers, without breaking down the numbers into their constituent digits. E.g. 13 – Operations on 13 such as adding to/subtracting from/multiplying with 13 can be performed. Breaking down 13 into 1 and 3 and then performing mathematical operations on 1 and 3 is not allowed.)

(30, 14)
(54, 26)

Question ID : **441009350891**
Option 1 ID : **4410091369929**
Option 2 ID : **4410091369926**
Option 3 ID : **4410091369927**
Option 4 ID : **4410091369928**

Ans
- ✗ 1. (66, 33)
- ✗ 2. (62, 31)
- ✓ 3. (90, 44)
- ✗ 4. (42, 19)

Q.4 Read the given statements and conclusions carefully. Assuming that the information given in the statements is true, even if it appears to be at variance with commonly known facts, decide which of the given conclusions logically follow(s) from the statements.

Statements:
All biscuits are spinaches.
All spinaches are mirrors.

Conclusions:
(I) Some mirrors are spinaches.
(II) All biscuits are mirrors.

Question ID : **441009351262**
Option 1 ID : **4410091371412**
Option 2 ID : **4410091371413**
Option 3 ID : **4410091371410**
Option 4 ID : **4410091371411**

Ans
- ✗ 1. Only conclusion (II) follows.
- ✗ 2. Only conclusion (I) follows.
- ✓ 3. Both conclusions (I) and (II) follow.
- ✗ 4. Neither conclusion (I) nor (II) follows.

Q.5 Select the set in which the numbers are related in the same way as are the numbers of the following sets.
(NOTE: Operations should be performed on the whole numbers, without breaking down the numbers into their constituent digits. E.g. 13 – Operations on 13 such as adding to/subtracting from/multiplying with 13 can be performed. Breaking down 13 into 1 and 3 and then performing mathematical operations on 1 and 3 is not allowed.)

(12, 144, 4)
(9, 135, 5)

Question ID : **441009350881**
Option 1 ID : **4410091369888**
Option 2 ID : **4410091369889**
Option 3 ID : **4410091369886**
Option 4 ID : **4410091369887**

Ans
- ✓ 1. (10, 180, 6)
- ✗ 2. (15, 405, 10)
- ✗ 3. (7, 175, 5)
- ✗ 4. (6, 21, 3)

Q.6 What will come in place of the question mark (?) in the following equation, if '+' and '−' are interchanged and 'x' and '÷' are interchanged?

5 + 57 × 3 − 12 ÷ 3 = ?

Question ID : **441009350922**
Option 1 ID : **4410091370052**
Option 2 ID : **4410091370051**
Option 3 ID : **4410091370053**
Option 4 ID : **4410091370050**

Ans
- ✗ 1. 8
- ✓ 2. 22
- ✗ 3. 14
- ✗ 4. 18

Q.7 In the following number-pairs, the second number is obtained by applying certain mathematical operation(s) to the first number. Which numbers should replace X and Y, so that the pattern followed by the two numbers on the left side of :: is the same as that on the right side of ::?
(NOTE: Operations should be performed on the whole numbers, without breaking down the numbers into their constituent digits. E.g. 13 – Operations on 13 such as adding to/subtracting from/multiplying with 13 can be performed. Breaking down 13 into 1 and 3 and then performing mathematical operations on 1 and 3 is not allowed.)

X : 50 :: 60 : Y

Question ID : **441009350892**
Option 1 ID : **4410091369931**
Option 2 ID : **4410091369933**
Option 3 ID : **4410091369930**
Option 4 ID : **4410091369932**

Ans
- ✓ 1. X = 150, Y = 20
- ✗ 2. X = 80, Y = 50
- ✗ 3. X = 120, Y = 40
- ✗ 4. X = 100, Y = 20

Q.8 If '+' means '÷', '−' means '+', '×' means '−', '÷' means '×', what will come in place of the question mark (?) in the following equation?
148 – 13 ÷ 8 × 549 + 9 = ?

Question ID : **441009350918**
Option 1 ID : **4410091370035**
Option 2 ID : **4410091370037**
Option 3 ID : **4410091370036**
Option 4 ID : **4410091370034**

Ans
- ✗ 1. 182
- ✗ 2. 201
- ✓ 3. 191
- ✗ 4. 173

QuickSarkari.com | WhatsApp Channel | Telegram: t.me/quick_sarkari

Q.9 Identify the figure given in the options which when put in place of the question mark (?) will logically complete the series.

Question ID : **441009351047**
Option 1 ID : **4410091370550**
Option 2 ID : **4410091370552**
Option 3 ID : **4410091370551**
Option 4 ID : **4410091370553**

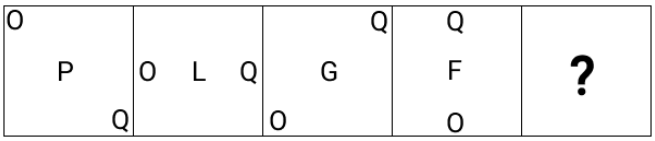

Ans

1. 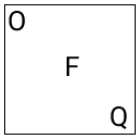

2. 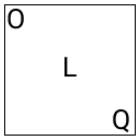

3. 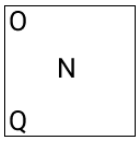

4. 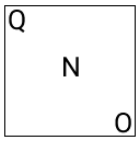

Q.10 If + means −, − means ×, × means ÷, ÷ means +, what will come in place of the question mark (?) in the following equation?

8 − 192 × 16 ÷ 54 + 50 = ?

Question ID : **441009350959**
Option 1 ID : **4410091370199**
Option 2 ID : **4410091370200**
Option 3 ID : **4410091370201**
Option 4 ID : **4410091370198**

Ans
1. 100
2. 110
3. 130
4. 125

Q.11 What should come in place of the question mark (?) in the given series?

1 3 6 ? 15 21

Question ID : **441009350963**
Option 1 ID : **4410091370215**
Option 2 ID : **4410091370216**
Option 3 ID : **4410091370214**
Option 4 ID : **4410091370217**

Ans
1. 10
2. 8
3. 9
4. 11

Q.12 Read the given statements and conclusions carefully. Assuming that the information given in the statements is true, even if it appears to be at variance with commonly known facts, decide which of the given conclusions logically follow(s) from the statements.

Statements:
Some bottles are onions.
Some onions are pears.

Conclusions:
(I) Some bottles are pears.
(II) All pears are onions.

Question ID : **441009351265**
Option 1 ID : **4410091371423**
Option 2 ID : **4410091371422**
Option 3 ID : **4410091371425**
Option 4 ID : **4410091371424**

Ans
1. Both conclusions (I) and (II) follow.
2. Neither conclusion (I) nor (II) follows.
3. Only conclusion (I) follows.
4. Only conclusion (II) follows.

Q.13 Select the correct mirror image of the given combination when the mirror is placed at 'MN' as shown below.

Question ID : **441009351035**
Option 1 ID : **4410091370502**
Option 2 ID : **4410091370505**
Option 3 ID : **4410091370503**
Option 4 ID : **4410091370504**

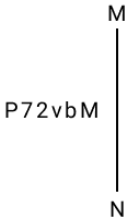

Ans
1. 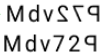
2. 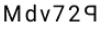
3. 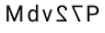
4. 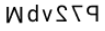

QuickSarkari.com | WhatsApp Channel | Telegram: t.me/quick_sarkari

Q.14 Read the given statements and conclusions carefully. Identify which of the given conclusions is/are true based on the given statements.

Statements:
S < U, N ≥ V, U = Q, Q < N

Conclusions:
I. S < V
II. N > S

Ans
✗ 1. Both conclusions I and II are true.
✗ 2. Only conclusion I is true.
✓ 3. Only conclusion II is true.
✗ 4. Either conclusion I or II is true.

Question ID : 441009351886
Option 1 ID : 4410091373897
Option 2 ID : 4410091373894
Option 3 ID : 4410091373895
Option 4 ID : 4410091373896

Q.15 Select the number from among the given options that can replace the question mark (?) in the following series.
847, 822, 796, 769, 741, ?

Ans
✓ 1. 712
✗ 2. 709
✗ 3. 715
✗ 4. 725

Question ID : 441009350970
Option 1 ID : 4410091370242
Option 2 ID : 4410091370245
Option 3 ID : 4410091370243
Option 4 ID : 4410091370244

Q.16 Based on the English alphabetical order, three of the following four letter-cluster pairs are alike in a certain way and thus form a group. Which letter-cluster pair DOES NOT belong to that group?
(Note: The odd one out is not based on the number of consonants/vowels or their position in the letter-cluster.)

Ans
✗ 1. QV - SV
✓ 2. SO - PI
✗ 3. SX - UX
✗ 4. FK - HK

Question ID : 441009351582
Option 1 ID : 4410091372690
Option 2 ID : 4410091372693
Option 3 ID : 4410091372692
Option 4 ID : 4410091372691

Q.17 A statement is given followed by two conclusions. Identify which of the given conclusions is/are true based on the given statement.

Statements: M ≥ P ≥ K, U < K, P < A
Conclusions:
I. M > U
II. U ≤ A

Ans
✓ 1. Only conclusion I is true.
✗ 2. Only conclusion II is true.
✗ 3. Either conclusion I or II is true.
✗ 4. Both conclusions I and II are true.

Question ID : 441009351887
Option 1 ID : 4410091373898
Option 2 ID : 4410091373899
Option 3 ID : 4410091373900
Option 4 ID : 4410091373901

Q.18 Based on the English alphabetical order, three of the following four letter-cluster pairs are alike in a certain way and thus form a group. Which letter-cluster pair DOES NOT belong to that group?
(Note: The odd one out is not based on the number of consonants/vowels or their position in the letter-cluster.)

Ans
✗ 1. TR-ON
✓ 2. VS-PO
✗ 3. HF-CB
✗ 4. ZX-UT

Question ID : 441009351872
Option 1 ID : 4410091373838
Option 2 ID : 4410091373839
Option 3 ID : 4410091373841
Option 4 ID : 4410091373840

Q.19 What will come in place of the question mark (?) in the following equation, if '+' and '−' are interchanged and '×' and '÷' are interchanged?
13 ÷ 2 + 17 − 68 × 4 = ?

Ans
✗ 1. 30
✓ 2. 26
✗ 3. 24
✗ 4. 15

Question ID : 441009350933
Option 1 ID : 4410091370096
Option 2 ID : 4410091370095
Option 3 ID : 4410091370094
Option 4 ID : 4410091370097

Q.20 Select the number from among the given options that can replace the question mark (?) in the following series.
30, 43, 58, 75, 94, ?

Ans
✗ 1. 123
✗ 2. 117
✗ 3. 112
✓ 4. 115

Question ID : 441009350972
Option 1 ID : 4410091370252
Option 2 ID : 4410091370250
Option 3 ID : 4410091370251
Option 4 ID : 4410091370253

Section : General Awareness

Q.1 Prime Minister Narendra Modi inaugurated the PM-SURAJ portal during an event organised by which ministry on 13 March 2024?

Ans
✗ 1. Ministry of Home Affairs
✗ 2. Ministry of New and Renewable Energy
✓ 3. Ministry of Social Justice and Empowerment
✗ 4. Ministry of Rural Development

Question ID : 441009394040
Option 1 ID : 4410091541655
Option 2 ID : 4410091541653
Option 3 ID : 4410091541654
Option 4 ID : 4410091541656

Q.2 Who is the Governor of Uttar Pradesh as of January 2023?

Ans
✗ 1. Ram Naik
✓ 2. Anandiben Patel
✗ 3. Ajay Kumar Mishra
✗ 4. Arif Mohammad Khan

Question ID : 441009394077
Option 1 ID : 4410091541804
Option 2 ID : 4410091541802
Option 3 ID : 4410091541801
Option 4 ID : 4410091541803

Q.3 How many languages are recognised as the official languages of India?

Ans
✗ 1. 26
✓ 2. 22
✗ 3. 20
✗ 4. 24

Question ID : 441009398791
Option 1 ID : 4410091560621
Option 2 ID : 4410091560619
Option 3 ID : 4410091560618
Option 4 ID : 4410091560620

Q.4 In which of the following stadiums was the final of the Durand Cup 2024 played?

Ans
✗ 1. Wankhede Stadium - Mumbai
✗ 2. Arun Jaitley Stadium - New Delhi
✗ 3. M. Chinnaswamy Stadium - Bengaluru
✓ 4. Salt Lake Stadium - Kolkata

Question ID : 441009394008
Option 1 ID : 4410091541526
Option 2 ID : 4410091541528
Option 3 ID : 4410091541527
Option 4 ID : 4410091541525

QuickSarkari.com | WhatsApp Channel | Telegram: t.me/quick_sarkari

Q.5 The Arya Samaj was founded in which of the following years?

Ans
✗ 1. 1855
✗ 2. 1865
✓ 3. 1875
✗ 4. 1885

Question ID : **441009393531**
Option 1 ID : **4410091539617**
Option 2 ID : **4410091539618**
Option 3 ID : **4410091539619**
Option 4 ID : **4410091539620**

Q.6 How is the inflationary gap measured?

Ans
✗ 1. By the difference between government expenditure and total income
✗ 2. By the difference between disposable income and investment
✗ 3. By the difference between demand and supply
✓ 4. By the difference between the total money income and the output available for consumption

Question ID : **441009394196**
Option 1 ID : **4410091542278**
Option 2 ID : **4410091542277**
Option 3 ID : **4410091542280**
Option 4 ID : **4410091542279**

Q.7 बाजार मूल्य पर सकल घरेलू उत्पाद (GDP) की गणना में निम्नलिखित में से किसे शामिल किया जाता है?

Ans
✗ 1. विदेश से आए निवासियों द्वारा काम और निवेश के लिए अर्जित शुद्ध आय
✗ 2. अन्य वस्तुओं और सेवाओं के उत्पादन में प्रयुक्त आगतों का मूल्य
✓ 3. घरेलू अर्थव्यवस्था में उत्पादित अंतिम वस्तुओं और सेवाओं का मूल्य
✗ 4. सरकार द्वारा पेंशन और सब्सिडी जैसे परिवारों को किए जाने वाले भुगतान

Question ID : **441009394193**
Option 1 ID : **4410091542265**
Option 2 ID : **4410091542267**
Option 3 ID : **4410091542268**
Option 4 ID : **4410091542266**

Q.8 Which university was declared the winner of the Maulana Abul Kalam Azad (MAKA) Trophy in 2024?

Ans
✗ 1. Delhi University
✓ 2. Chandigarh University
✗ 3. Panjab University
✗ 4. Lovely Professional University

Question ID : **441009394013**
Option 1 ID : **4410091541547**
Option 2 ID : **4410091541548**
Option 3 ID : **4410091541546**
Option 4 ID : **4410091541545**

Q.9 Who among the following was the first President of the Indian National Congress?

Ans
✗ 1. A O Hume
✓ 2. Womesh Chunder Bonnerjee
✗ 3. Dadabhai Naoroji
✗ 4. Surendranath Banerjee

Question ID : **441009393535**
Option 1 ID : **4410091539634**
Option 2 ID : **4410091539633**
Option 3 ID : **4410091539635**
Option 4 ID : **4410091539636**

Q.10 In which of the following cities, has the SAFF Senior Athletics Championships been scheduled for October 2024?

Ans
✗ 1. Patna
✓ 2. Ranchi
✗ 3. Bhagalpur
✗ 4. Gaya

Question ID : **441009394007**
Option 1 ID : **4410091541521**
Option 2 ID : **4410091541524**
Option 3 ID : **4410091541523**
Option 4 ID : **4410091541522**

Q.11 Under the influence of which social reformer was the 'Sati' system abolished?

Ans
✗ 1. Jyotirao Phule
✗ 2. Mahatma Gandhi
✗ 3. Swami Vivekananda
✓ 4. Raja Ram Mohan Roy

Question ID : **441009393530**
Option 1 ID : **4410091539615**
Option 2 ID : **4410091539614**
Option 3 ID : **4410091539613**
Option 4 ID : **4410091539616**

Q.12 What is the nominal GDP if the real GDP is ₹300 crore and the price index is 120?

Ans
✗ 1. ₹260 crore
✗ 2. ₹180 crore
✓ 3. ₹360 crore
✗ 4. ₹420 crore

Question ID : **441009394200**
Option 1 ID : **4410091542294**
Option 2 ID : **4410091542293**
Option 3 ID : **4410091542295**
Option 4 ID : **4410091542296**

Q.13 Who took charge as the Controller General of Defence Accounts (CGDA) on March 1, 2025?

Ans
✗ 1. RR Mishra
✓ 2. Dr Mayank Sharma
✗ 3. Alok Tiwari
✗ 4. Rajnish Kumar

Question ID : **441009393793**
Option 1 ID : **4410091540668**
Option 2 ID : **4410091540666**
Option 3 ID : **4410091540667**
Option 4 ID : **4410091540665**

Q.14 Which of the following social reformers founded the Bharat Dharma Mahamandal to promote Hindu unity and religious reforms?

Ans
✗ 1. Raja Ram Mohan Roy
✓ 2. Pandit Din Dayalu Sharma
✗ 3. Swami Vivekananda
✗ 4. Chhatrapati Shivaji Maharaj

Question ID : **441009393527**
Option 1 ID : **4410091539601**
Option 2 ID : **4410091539604**
Option 3 ID : **4410091539603**
Option 4 ID : **4410091539602**

Q.15 Name the India's first domain-specific large language model designed for the banking, financial services and insurance (BFSI) sector which was unveiled in May 2024.

Ans
✗ 1. Llama
✓ 2. Sesame
✗ 3. Palm
✗ 4. Eliza

Question ID : **441009394059**
Option 1 ID : **4410091541730**
Option 2 ID : **4410091541729**
Option 3 ID : **4410091541731**
Option 4 ID : **4410091541732**

Q.16 When was the Central Institute of Classical Tamil (CICT) established?

Ans
✓ 1. 2008
✗ 2. 2005
✗ 3. 2010
✗ 4. 2012

Question ID : **441009398798**
Option 1 ID : **4410091560647**
Option 2 ID : **4410091560646**
Option 3 ID : **4410091560648**
Option 4 ID : **4410091560649**

Q.17 निम्नलिखित में से कौन-सा अल्परोजगार की व्याख्या करता है?

Ans
✗ 1. ऐसी स्थिति जहाँ व्यक्ति अपनी इच्छा से अधिक घंटे काम कर रहे हों
✗ 2. ऐसी स्थिति जहाँ व्यक्ति बेरोज़गार हों लेकिन सक्रिय रूप से काम की तलाश में न हों
✗ 3. ऐसी स्थिति जहाँ व्यक्ति रोज़गार की तलाश में न हों
✓ 4. ऐसी स्थिति जहाँ व्यक्ति अपनी इच्छा से कम घंटे काम कर रहे हों

Question ID : **441009394151**
Option 1 ID : **4410091542097**
Option 2 ID : **4410091542099**
Option 3 ID : **4410091542098**
Option 4 ID : **4410091542100**

QuickSarkari.com | WhatsApp Channel | Telegram: t.me/quick_sarkari

Q.18 The Union Cabinet approved the continuation of the Umbrella Scheme on 'Women Safety' by allocating ₹1,179.72 crore to which period?

Ans
- ✗ 1. 2024-25
- ✓ 2. 2025-26
- ✗ 3. 2026-27
- ✗ 4. 2027-28

Question ID : **441009394039**
Option 1 ID : **4410091541649**
Option 2 ID : **4410091541650**
Option 3 ID : **4410091541651**
Option 4 ID : **4410091541652**

Q.19 Which of the following initiatives was launched by the Government of India to promote the development of urban areas with better infrastructure and smart solutions?

Ans
- ✓ 1. Smart Cities Mission
- ✗ 2. Digital India Programme
- ✗ 3. Swachh Bharat Abhiyan
- ✗ 4. Pradhan Mantri Jan Dhan Yojana

Question ID : **441009394132**
Option 1 ID : **4410091542023**
Option 2 ID : **4410091542022**
Option 3 ID : **4410091542021**
Option 4 ID : **4410091542024**

Q.20 What is added to the Gross Domestic Product at Market Prices to arrive at the Gross National Product at Market Prices?

Ans
- ✓ 1. Net factor income from abroad
- ✗ 2. Net Indirect Taxes
- ✗ 3. Consumption of Fixed Capital
- ✗ 4. Net Domestic Product at Factor Cost

Question ID : **441009394208**
Option 1 ID : **4410091542325**
Option 2 ID : **4410091542327**
Option 3 ID : **4410091542328**
Option 4 ID : **4410091542326**

Section : **General Awareness1**

Q.1 In India which of the following is the Executive Head of the State?

Ans
- ✓ 1. President of India
- ✗ 2. Chief Secretary, Government of India
- ✗ 3. Prime Minister
- ✗ 4. Leader of the Opposition

Question ID : **441009393717**
Option 1 ID : **4410091540361**
Option 2 ID : **4410091540364**
Option 3 ID : **4410091540362**
Option 4 ID : **4410091540363**

Q.2 Which of the following are non-flowering, vascular and spore-bearing plants that have the ability to remove contaminants through accumulation, chelation and detoxification mechanisms?

Ans
- ✗ 1. Cedrus deodara
- ✗ 2. Common mallows
- ✓ 3. Ferns
- ✗ 4. Nymphaeales

Question ID : **441009399027**
Option 1 ID : **4410091561562**
Option 2 ID : **4410091561565**
Option 3 ID : **4410091561563**
Option 4 ID : **4410091561564**

Q.3 केंद्रीय मंत्रिपरिषद का कार्यकाल, _____ में से उसके बहुमत पर निर्भर करता है।

Ans
- ✗ 1. राज्यसभा
- ✗ 2. राज्य विधानसभा
- ✓ 3. लोकसभा
- ✗ 4. भारत के मुख्य न्यायाधीश

Question ID : **441009393643**
Option 1 ID : **4410091540066**
Option 2 ID : **4410091540068**
Option 3 ID : **4410091540065**
Option 4 ID : **4410091540067**

Q.4 Tyndal effect can be seen in _____.

Ans
- ✗ 1. sugar solution
- ✗ 2. salt solution
- ✗ 3. copper sulphate solution
- ✓ 4. milk

Question ID : **441009398995**
Option 1 ID : **4410091561434**
Option 2 ID : **4410091561436**
Option 3 ID : **4410091561437**
Option 4 ID : **4410091561435**

Q.5 Individual Satyagraha was officially inaugurated by Mahatma Gandhi in which of the following years?

Ans
- ✗ 1. 1942 AD
- ✗ 2. 1945 AD
- ✓ 3. 1940 AD
- ✗ 4. 1947 AD

Question ID : **441009393492**
Option 1 ID : **4410091539462**
Option 2 ID : **4410091539463**
Option 3 ID : **4410091539461**
Option 4 ID : **4410091539464**

Q.6 Which of the following explains the nature of amendment in the Indian Constitution?

Ans
- ✗ 1. Neither rigid nor flexible
- ✓ 2. Partly rigid and partly flexible
- ✗ 3. Flexible
- ✗ 4. Rigid

Question ID : **441009393733**
Option 1 ID : **4410091540426**
Option 2 ID : **4410091540425**
Option 3 ID : **4410091540427**
Option 4 ID : **4410091540428**

Q.7 भारत की एकता, अखंडता, बहुभाषिकता, बहुसांस्कृतिकता और जातीय समाज को ध्यान में रखते हुए, संविधान में निम्नलिखित में से कौन-सी विशेषता शामिल की गई है?

Ans
- ✗ 1. मौलिक अधिकार
- ✗ 2. न्यायिक स्वतंत्रता
- ✓ 3. संघवाद
- ✗ 4. निर्देशक सिद्धांत

Question ID : **441009393745**
Option 1 ID : **4410091540476**
Option 2 ID : **4410091540473**
Option 3 ID : **4410091540475**
Option 4 ID : **4410091540474**

Q.8 According to the Trade Unions Act, 1926 (India), what is the age criterion for a person to be elected as the executive or any other office bearer in a registered trade union?

Ans
- ✗ 1. 9 years
- ✗ 2. 35 years
- ✓ 3. 18 years
- ✗ 4. 12 years

Question ID : **441009399232**
Option 1 ID : **4410091562382**
Option 2 ID : **4410091562384**
Option 3 ID : **4410091562385**
Option 4 ID : **4410091562383**

Q.9 What is the official language of Arunachal Pradesh?

Ans
- ✗ 1. Hindi
- ✗ 2. Mizo
- ✗ 3. Bodo
- ✓ 4. English

Question ID : **441009398917**
Option 1 ID : **4410091561124**
Option 2 ID : **4410091561125**
Option 3 ID : **4410091561123**
Option 4 ID : **4410091561122**

Q.10 In what form can plants absorb Nitrogen?

Ans
- ✗ 1. Gaseous form
- ✗ 2. Solid form
- ✓ 3. Soluble form
- ✗ 4. Crystal form

Question ID : **441009398992**
Option 1 ID : **4410091561422**
Option 2 ID : **4410091561425**
Option 3 ID : **4410091561424**
Option 4 ID : **4410091561423**

QuickSarkari.com | WhatsApp Channel | Telegram: t.me/quick_sarkari

Q.11 **Which type of vegetation in India is found in areas with more than 200 cm of rainfall?**

Ans
✗ 1. Tropical Deciduous Forests
✗ 2. Montane Forests
✓ 3. Tropical Evergreen Forests
✗ 4. Tropical Thorn Forests

Question ID : **441009399169**
Option 1 ID : **4410091562130**
Option 2 ID : **4410091562133**
Option 3 ID : **4410091562132**
Option 4 ID : **4410091562131**

Q.12 **भारतीय दार्शनिक परंपरा में, निम्नलिखित में से कौन-सा विकल्प ऋण की अवधारणा का सटीक वर्णन करता है?**

Ans
✗ 1. सेवा भाव का एक कानूनी अनुबंध
✗ 2. अनुष्ठानों के माध्यम से चुकाया जाने वाला एक वित्तीय दायित्व
✓ 3. मोक्ष प्राप्त करने के लिए चुकाया जाने वाला एक नैतिक और आध्यात्मिक ऋण
✗ 4. शुद्धिकरण की आवश्यकता वाला अपराध का एक रूप

Question ID : **441009398907**
Option 1 ID : **4410091561085**
Option 2 ID : **4410091561082**
Option 3 ID : **4410091561084**
Option 4 ID : **4410091561083**

Q.13 **Body Mass Index (BMI) is defined as:**

Ans
✗ 1. the weight in kilograms by the height in centimetres
✗ 2. the weight in kilograms by the square of the height in centimetres
✗ 3. the weight in kilograms by the height in metres
✓ 4. the weight in kilograms by the square of the height in metres

Question ID : **441009399024**
Option 1 ID : **4410091561553**
Option 2 ID : **4410091561552**
Option 3 ID : **4410091561551**
Option 4 ID : **4410091561550**

Q.14 **Which of the following pairs is INCORRECTLY matched?**

Ans
✗ 1. Buland Darwaza – Akbar
✗ 2. Kabulibagh Masjid – Babur
✗ 3. Quwat-ul-Islam – Qutub-ud-din-aibak
✓ 4. Qila-i-Kuhna Masjid – Shah Jahan

Question ID : **441009398909**
Option 1 ID : **4410091561093**
Option 2 ID : **4410091561092**
Option 3 ID : **4410091561091**
Option 4 ID : **4410091561090**

Q.15 **Which of the following physiographic divisions of India has the lowest average height?**

Ans
✗ 1. Indian Islands
✓ 2. Coastal Plains
✗ 3. Peninsular Plateau
✗ 4. Himalayan Mountains

Question ID : **441009399158**
Option 1 ID : **4410091562089**
Option 2 ID : **4410091562087**
Option 3 ID : **4410091562088**
Option 4 ID : **4410091562086**

Q.16 **Which of the following is the winter cropping season of India?**

Ans
✓ 1. Rabi
✗ 2. Boro
✗ 3. Zaid
✗ 4. Kharif

Question ID : **441009399244**
Option 1 ID : **4410091562430**
Option 2 ID : **4410091562433**
Option 3 ID : **4410091562432**
Option 4 ID : **4410091562431**

Q.17 **भारतीय संविधान किस प्रकार की शासन प्रणाली प्रदान करता है?**

Ans
✓ 1. संसदीय
✗ 2. एकात्मक
✗ 3. अर्द्ध-लोकतांत्रिक
✗ 4. राष्ट्रपति

Question ID : **441009393714**
Option 1 ID : **4410091540349**
Option 2 ID : **4410091540350**
Option 3 ID : **4410091540352**
Option 4 ID : **4410091540351**

Q.18 **How many domes are there on the top of the Birla Temple in Jaipur that represents different religions followed in India?**

Ans
✗ 1. 5
✗ 2. 4
✗ 3. 2
✓ 4. 3

Question ID : **441009398878**
Option 1 ID : **4410091560966**
Option 2 ID : **4410091560967**
Option 3 ID : **4410091560969**
Option 4 ID : **4410091560968**

Q.19 **According to the osmotic theory of water absorption, root hairs absorb water when:**

Ans
✗ 1. the solute concentration of soil is hypertonic to the root cells
✗ 2. the solute concentration of soil is isotonic to the solute concentration of the root cells
✗ 3. the solute concentration of root cells is hypotonic to the soil
✓ 4. the solute concentration of the root cells is high and water potential is low, the water from the surrounding environment enters within the root cells through endosmosis

Question ID : **441009399019**
Option 1 ID : **4410091561531**
Option 2 ID : **4410091561532**
Option 3 ID : **4410091561533**
Option 4 ID : **4410091561530**

Q.20 **The population census in India is conducted every decade. Which of the following years saw an interruption in this cycle, with the census NOT being conducted?**

Ans
✓ 1. 2021
✗ 2. 2011
✗ 3. 2001
✗ 4. 1991

Question ID : **441009399148**
Option 1 ID : **4410091562046**
Option 2 ID : **4410091562047**
Option 3 ID : **4410091562048**
Option 4 ID : **4410091562049**

Section : **Arithmetical and Numerical Ability**

Q.1 **A sum of money at simple interest doubles in 12.5 years. In how many years, at the same rate, will it be tripled?**

Ans
✗ 1. 30 years
✗ 2. 20 years
✗ 3. 18 years
✓ 4. 25 years

Question ID : **441009374387**
Option 1 ID : **4410091463136**
Option 2 ID : **4410091463133**
Option 3 ID : **4410091463135**
Option 4 ID : **4410091463134**

Q.2 Simplify the following expression: $\left(\frac{a^x}{a^y}\right)^z \times \left(\frac{a^y}{a^z}\right)^x \times \left(\frac{a^z}{a^x}\right)^y$ a is non-zero.

Ans
✓ 1. 1
✗ 2. 0
✗ 3. −1
✗ 4. a

Question ID : **441009374507**
Option 1 ID : **4410091463616**
Option 2 ID : **4410091463613**
Option 3 ID : **4410091463614**
Option 4 ID : **4410091463615**

QuickSarkari.com | WhatsApp Channel | Telegram: t.me/quick_sarkari

Q.3 A seller sells a printer for ₹39,405 earning an 11% profit. He also sells a mobile phone for ₹13,625 earning a profit of 9%. What is the total profit (in ₹) he earned on selling a printer and a mobile phone?

Ans
✗ 1. 5,300
✗ 2. 5,170
✗ 3. 5,000
✓ 4. 5,030

Question ID : **441009374416**
Option 1 ID : **4410091463249**
Option 2 ID : **4410091463252**
Option 3 ID : **4410091463251**
Option 4 ID : **4410091463250**

Q.4 Kanchan spends 40% of his income. If he saves ₹72,000, then his income (in ₹) is:

Ans
✗ 1. 1,19,000
✗ 2. 28,800
✓ 3. 1,20,000
✗ 4. 1,21,000

Question ID : **441009374256**
Option 1 ID : **4410091462611**
Option 2 ID : **4410091462610**
Option 3 ID : **4410091462609**
Option 4 ID : **4410091462612**

Q.5 What is the difference between the compound interests on ₹10,000 for 1 year at 12% per annum compounded yearly and half–yearly?

Ans
✗ 1. ₹360
✓ 2. ₹36
✗ 3. ₹400
✗ 4. ₹40

Question ID : **441009374452**
Option 1 ID : **4410091463394**
Option 2 ID : **4410091463395**
Option 3 ID : **4410091463396**
Option 4 ID : **4410091463393**

Q.6 The average weight of a family of five members (in kg) whose weights are 40 kg, 49 kg, 56 kg, 63 kg and 37 kg is:

Ans
✗ 1. 48
✗ 2. 50
✗ 3. 51
✓ 4. 49

Question ID : **441009374364**
Option 1 ID : **4410091463043**
Option 2 ID : **4410091463042**
Option 3 ID : **4410091463044**
Option 4 ID : **4410091463041**

Q.7 A person borrowed some money on simple interest. After 4 years, he returned $\frac{5}{4}$ of the money to the lender to clear

What was the rate of interest?

Ans
✗ 1. 3.25% p.a
✗ 2. 5.25% p.a
✗ 3. 4.25% p.a
✓ 4. 6.25% p.a

Question ID : **441009374392**
Option 1 ID : **4410091463153**
Option 2 ID : **4410091463155**
Option 3 ID : **4410091463154**
Option 4 ID : **4410091463156**

Q.8 The ratio of milk to water in a 176-litre mixture is 7 : 4. Find the quantity (in litres) of water that must be added to the mixture to make the ratio 1 : 1.

Ans
✗ 1. 40
✗ 2. 46
✗ 3. 53
✓ 4. 48

Question ID : **441009373854**
Option 1 ID : **4410091461004**
Option 2 ID : **4410091461003**
Option 3 ID : **4410091461002**
Option 4 ID : **4410091461001**

Q.9 The average of the squares of the first 17 natural numbers is:

Ans
✗ 1. 104
✗ 2. 106
✓ 3. 105
✗ 4. 107

Question ID : **441009374300**
Option 1 ID : **4410091462787**
Option 2 ID : **4410091462786**
Option 3 ID : **4410091462785**
Option 4 ID : **4410091462788**

Q.10 A person sells 90 articles and gains the SP of 15 articles. Find the gain percentage.

Ans
✗ 1. 18%
✗ 2. 30%
✓ 3. 20%
✗ 4. 25%

Question ID : **441009374418**
Option 1 ID : **4410091463260**
Option 2 ID : **4410091463257**
Option 3 ID : **4410091463259**
Option 4 ID : **4410091463258**

Q.11 The population of a village was 1,60,000. It increased by 10% in the first year and increased by 20% in the second year. Its population after two years is _____.

Ans
✗ 1. 1,76,000
✗ 2. 2,08,000
✓ 3. 2,11,200
✗ 4. 1,92,000

Question ID : **441009374123**
Option 1 ID : **4410091462078**
Option 2 ID : **4410091462080**
Option 3 ID : **4410091462077**
Option 4 ID : **4410091462079**

Q.12 A group of 30 students appeared in a test. The average score of 12 students is 64, and that of the rest is 66. What is the average score of the group?

Ans
✓ 1. 65.2
✗ 2. 66.2
✗ 3. 64.2
✗ 4. 63.2

Question ID : **441009374352**
Option 1 ID : **4410091462993**
Option 2 ID : **4410091462995**
Option 3 ID : **4410091462994**
Option 4 ID : **4410091462996**

Q.13 If the length of a rectangular tile is increased by 25% and breadth is decreased by 16%, then the percentage increase in the area of the tile is:

Ans
✗ 1. 10%
✗ 2. 6.5%
✓ 3. 5%
✗ 4. 9%

Question ID : **441009374467**
Option 1 ID : **4410091463454**
Option 2 ID : **4410091463455**
Option 3 ID : **4410091463453**
Option 4 ID : **4410091463456**

Q.14 The population of a city increased by 68,489 during a year. If the population of the city at the beginning of that year was 3,54,981, what was its population at the end of that year?

Ans
✗ 1. 4,23,490
✗ 2. 4,23,440
✓ 3. 4,23,470
✗ 4. 4,23,460

Question ID : **441009374098**
Option 1 ID : **4410091461979**
Option 2 ID : **4410091461980**
Option 3 ID : **4410091461977**
Option 4 ID : **4410091461978**

QuickSarkari.com | WhatsApp Channel | Telegram: t.me/quick_sarkari

Q.15 Study the given pie chart and answer the question that follows. The pie chart shows the marks scored by a student Mr. Raman in different subjects, Mathematics, Science, Civics, English and Hindi, in an examination. The values are given in degrees. Assume that the total marks obtained in the examination are 600.

Question ID : **441009373908**
Option 1 ID : **4410091461217**
Option 2 ID : **4410091461218**
Option 3 ID : **4410091461220**
Option 4 ID : **4410091461219**

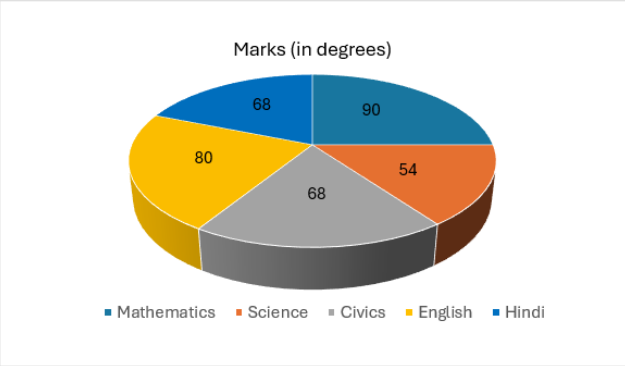

What is the percentage (rounded off to the nearest integer) of marks obtained in both English and Hindi?

Ans
✔ 1. 41%
✘ 2. 42%
✘ 3. 40%
✘ 4. 47%

Q.16 The population of a town 2 years ago was 17,500. Due to migration to other cities, it decreased at the rate of 4% per annum. Find its present population.

Question ID : **441009374489**
Option 1 ID : **4410091463542**
Option 2 ID : **4410091463544**
Option 3 ID : **4410091463541**
Option 4 ID : **4410091463543**

Ans
✘ 1. 16,800
✘ 2. 11,200
✔ 3. 16,128
✘ 4. 15,482

Q.17 The number of prime numbers lying between 470 and 485, both included, is:

Question ID : **441009374090**
Option 1 ID : **4410091461946**
Option 2 ID : **4410091461945**
Option 3 ID : **4410091461947**
Option 4 ID : **4410091461948**

Ans
✘ 1. Four
✔ 2. One
✘ 3. Two
✘ 4. Three

Q.18 The population of a village was 1,60,000. It increased by 10% in the first year and increased by 25% in the second year. Its population after two years is _____.

Question ID : **441009374122**
Option 1 ID : **4410091462074**
Option 2 ID : **4410091462076**
Option 3 ID : **4410091462073**
Option 4 ID : **4410091462075**

Ans
✘ 1. 1,76,000
✘ 2. 2,16,000
✔ 3. 2,20,000
✘ 4. 2,00,000

Q.19 The value of 3{(−1) + 20} + (−7 + 9)(2) − 12 is:

Question ID : **441009374484**
Option 1 ID : **4410091463524**
Option 2 ID : **4410091463522**
Option 3 ID : **4410091463523**
Option 4 ID : **4410091463521**

Ans
✘ 1. 36
✘ 2. 48
✘ 3. 26
✔ 4. 49

Q.20 Study the given pie chart and answer the question that follows. The pie chart indicates the different modes of transport (in degree-wise) used by students to go to an institution. There are 600 students studying in the institution.

Question ID : **441009373906**
Option 1 ID : **4410091461212**
Option 2 ID : **4410091461211**
Option 3 ID : **4410091461210**
Option 4 ID : **4410091461209**

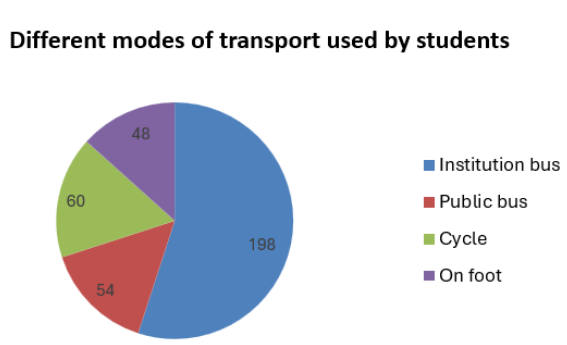

Find the number of students who travel by the public bus.

Ans
✘ 1. 100
✘ 2. 120
✔ 3. 90
✘ 4. 80

Section : **Arithmetical and Numerical Ability1**

Q.1 When the selling price of a toy game is ₹19,000, the shopkeeper incurs a loss of 5%. What should be the selling price (in ₹) of that toy game so as to gain 20%?

Question ID : **441009374174**
Option 1 ID : **4410091462282**
Option 2 ID : **4410091462281**
Option 3 ID : **4410091462284**
Option 4 ID : **4410091462283**

Ans
✘ 1. 20,000
✔ 2. 24,000
✘ 3. 20,720
✘ 4. 20,620

QuickSarkari.com | WhatsApp Channel | Telegram: t.me/quick_sarkari

Q.2 A tap can fill a cistern in 17 minutes, and another can empty it in 34 minutes. If both the taps are opened simultaneously, find the time taken to fill the cistern.

Ans
1. 25 minutes
2. 12 minutes
3. 34 minutes
4. 17 minutes

Question ID : 441009374187
Option 1 ID : 4410091462334
Option 2 ID : 4410091462335
Option 3 ID : 4410091462336
Option 4 ID : 4410091462333

Q.3 A salesman fixes the marked price of an article as ₹4,000. He sells it to the customers at a discount of 20%. For
If the cost price of the article is ₹3,000, find his gain or loss percentage.

Ans
1. Loss $1\frac{1}{3}\%$
2. Loss $2\frac{1}{5}\%$
3. Gain $1\frac{1}{3}\%$
4. Gain $2\frac{1}{5}\%$

Question ID : 441009374216
Option 1 ID : 4410091462450
Option 2 ID : 4410091462452
Option 3 ID : 4410091462451
Option 4 ID : 4410091462449

Q.4 If 7.5 : 13.5 :: 19 : x, find the value of x.

Ans
1. 34.2
2. 32.4
3. 33.6
4. 32.8

Question ID : 441009373941
Option 1 ID : 4410091461349
Option 2 ID : 4410091461352
Option 3 ID : 4410091461350
Option 4 ID : 4410091461351

Q.5 3 men or 4 women can plough a field in 96 days, how long (in days) will 6 men and 7 women take to plough it?

Ans
1. $26\frac{3}{5}$
2. $25\frac{3}{5}$
3. $21\frac{3}{5}$
4. $24\frac{3}{5}$

Question ID : 441009374415
Option 1 ID : 4410091463248
Option 2 ID : 4410091463247
Option 3 ID : 4410091463245
Option 4 ID : 4410091463246

Q.6 A square and equilateral triangle have equal perimeters. If the diagonal of the square is $12\sqrt{2}$ cm, then the area of the triangle is:

Ans
1. $64\sqrt{3}$ cm^2
2. $12\sqrt{3}$ cm^2
3. $42\sqrt{3}$ cm^2
4. $16\sqrt{3}$ cm^2

Question ID : 441009374558
Option 1 ID : 4410091463820
Option 2 ID : 4410091463818
Option 3 ID : 4410091463819
Option 4 ID : 4410091463817

Q.7 A solid cone has a volume equal to V cubic units. Its diameter is double its height. Then its height (in units) is:

Ans
1. $\sqrt[3]{\frac{2V}{3\pi}}$
2. $\sqrt[3]{\frac{V}{3\pi}}$
3. $\sqrt[3]{\frac{3V}{\pi}}$
4. $\sqrt[3]{\frac{V}{\pi}}$

Question ID : 441009374596
Option 1 ID : 4410091463972
Option 2 ID : 4410091463971
Option 3 ID : 4410091463970
Option 4 ID : 4410091463969

Q.8 When the selling price of a toy game is ₹19,000, the shopkeeper incurs a loss of 5%. What should be the selling price (in ₹) of that toy game so as to gain 19%?

Ans
1. 20,000
2. 20,549
3. 20,449
4. 23,800

Question ID : 441009374175
Option 1 ID : 4410091462286
Option 2 ID : 4410091462288
Option 3 ID : 4410091462287
Option 4 ID : 4410091462285

Q.9 The ratio of incomes of Seema and Darshan is 6 : 7. They save ₹18,000 and ₹9,000, respectively. If the ratio of their expenditures is 11 : 17, then what is the total expenditure (in ₹) of Seema and Darshan?

Ans
1. 80,640
2. 78,000
3. 79,000
4. 81,000

Question ID : 441009373960
Option 1 ID : 4410091461425
Option 2 ID : 4410091461428
Option 3 ID : 4410091461427
Option 4 ID : 4410091461426

Q.10 Abhishek, Barun and Sohan together can complete a piece of work in 5 days. Abhishek and Barun together can complete one-third of the same work in 2 days. Barun and Sohan together can complete one-fifth of the same work in 2 days. In how many days can Abhishek and Sohan work together to complete the same?

Ans
1. 6
2. $7\frac{1}{3}$
3. $8\frac{1}{3}$
4. $7\frac{1}{2}$

Question ID : 441009374411
Option 1 ID : 4410091463229
Option 2 ID : 4410091463230
Option 3 ID : 4410091463232
Option 4 ID : 4410091463231

Q.11 A motorist covers a total distance of 30 km in 54 minutes. For the first 10 minutes, he travels at a speed of x km/hr. For the next 21 minutes, he doubles his speed. In the final 23 minutes, he returns to his original speed of x km/hr. What is the value of x?

Ans
1. 24
2. 27
3. 29
4. 21

Question ID : 441009373996
Option 1 ID : 4410091461569
Option 2 ID : 4410091461571
Option 3 ID : 4410091461572
Option 4 ID : 4410091461570

QuickSarkari.com | WhatsApp Channel | Telegram: t.me/quick_sarkari

Q.12 The value of x in the proportion equation 11 : 77 :: 63 : x is:

Ans
✔ 1. 441
✘ 2. 439
✘ 3. 432
✘ 4. 444

Question ID : 441009373940
Option 1 ID : 4410091461345
Option 2 ID : 4410091461348
Option 3 ID : 4410091461346
Option 4 ID : 4410091461347

Q.13 A semi-circular sheet of diameter 28 cm is bent to form an open conical cup. Find the capacity of the cup. (Use $\pi = \frac{22}{7}$, $\sqrt{3} = 1.732$) (Correct to two decimal places)

Ans
✘ 1. 722.89 cm^3
✘ 2. 628.00 cm^3
✘ 3. 728.00 cm^3
✔ 4. 622.37 cm^3

Question ID : 441009374635
Option 1 ID : 4410091464127
Option 2 ID : 4410091464125
Option 3 ID : 4410091464128
Option 4 ID : 4410091464126

Q.14 Two pipes, P1 and P2, together can fill a cistern in 15 minutes and P1 alone can fill it in 25 minutes. P2 alone can fill the cistern in:

Ans
✘ 1. 20.25 minutes
✘ 2. 35.5 minutes
✘ 3. 10 minutes
✔ 4. 37.5 minutes

Question ID : 441009374189
Option 1 ID : 4410091462344
Option 2 ID : 4410091462342
Option 3 ID : 4410091462341
Option 4 ID : 4410091462343

Q.15 The base of a parallelogram is thrice its height. If the area of the parallelogram is 132 cm^2, find its height.

Ans
✘ 1. 4√11 cm
✘ 2. 3√11 cm
✘ 3. √11 cm
✔ 4. 2√11 cm

Question ID : 441009374554
Option 1 ID : 4410091463804
Option 2 ID : 4410091463803
Option 3 ID : 4410091463801
Option 4 ID : 4410091463802

Q.16 The ratio of incomes of Sanjay and Darshan is 5 : 3. They save ₹24,000 and ₹6,000, respectively. If the ratio of their expenditures is 6 : 5, then what is the expenditure (in ₹) of Sanjay?

Ans
✘ 1. 42,000
✔ 2. 36,000
✘ 3. 32,000
✘ 4. 40,000

Question ID : 441009373959
Option 1 ID : 4410091461424
Option 2 ID : 4410091461421
Option 3 ID : 4410091461422
Option 4 ID : 4410091461423

Q.17 How long will a 547-m long train, travelling at 73 km/hr, take to cross a 467-m long tunnel (round off your answer to the nearest second)?

Ans
✘ 1. 45 seconds
✔ 2. 50 seconds
✘ 3. 42 seconds
✘ 4. 47 seconds

Question ID : 441009374021
Option 1 ID : 4410091461672
Option 2 ID : 4410091461669
Option 3 ID : 4410091461670
Option 4 ID : 4410091461671

Q.18 From a taxi stand, two cabs depart in the same direction at a speed of 54 km/hr, with a time gap of 55 minutes between them. A person driving a racing car in the opposite direction meets the two cabs at an interval of 12 minutes. What is the speed (in km/hr) of the racing car?

Ans
✘ 1. 184.9
✘ 2. 194.6
✔ 3. 193.5
✘ 4. 200.9

Question ID : 441009373995
Option 1 ID : 4410091461566
Option 2 ID : 4410091461568
Option 3 ID : 4410091461565
Option 4 ID : 4410091461567

Q.19 Ranu walks to his office, which is 6.5 km away from his home. In the morning, he takes 3 hours to reach the office. In the evening, while returning, he takes 20 minutes longer to cover the same distance. What is his average speed (in km/hr) for the entire round trip?

Ans
✘ 1. $2\frac{11}{19}$
✘ 2. $3\frac{1}{19}$
✘ 3. $3\frac{11}{19}$
✔ 4. $2\frac{1}{19}$

Question ID : 441009374010
Option 1 ID : 4410091461626
Option 2 ID : 4410091461627
Option 3 ID : 4410091461628
Option 4 ID : 4410091461625

Q.20 The marked price of an article is ₹9,200 and is available for ₹7,820 after availing a discount of k%. The value of k is:

Ans
✘ 1. 12
✔ 2. 15
✘ 3. 20
✘ 4. 18

Question ID : 441009374366
Option 1 ID : 4410091463049
Option 2 ID : 4410091463050
Option 3 ID : 4410091463052
Option 4 ID : 4410091463051

Section : **Test of English Language and Comprehension**

Q.1 Select the most appropriate option to fill in the blank.

Joshua works _____ hard to make ends meet.

Ans
✘ 1. sincerely
✘ 2. minutely
✘ 3. boastfully
✔ 4. very

Question ID : 441009349230
Option 1 ID : 4410091363327
Option 2 ID : 4410091363329
Option 3 ID : 4410091363328
Option 4 ID : 4410091363326

Q.2 Select the most appropriate adverb to fill in the blank.

She runs very _____ in the mornings to stay fit.

Ans
✘ 1. bitterly
✔ 2. slowly
✘ 3. rudely
✘ 4. radiantly

Question ID : 441009348905
Option 1 ID : 4410091362028
Option 2 ID : 4410091362027
Option 3 ID : 4410091362026
Option 4 ID : 4410091362029

QuickSarkari.com | WhatsApp Channel | Telegram: t.me/quick_sarkari

Q.3 Select the most appropriate option that rectifies the underlined preposition in the given sentence.

You can see the patient around 5 p.m. and 7 p.m.

Ans
✗ 1. in
✓ 2. between
✗ 3. on
✗ 4. at

Question ID : 441009348992
Option 1 ID : 4410091362374
Option 2 ID : 4410091362377
Option 3 ID : 4410091362375
Option 4 ID : 4410091362376

Q.4 Select the most appropriate option that rectifies the grammatical error(s) in the given sentence.

He is more kinder than his brother.

Ans
✗ 1. kind
✗ 2. kindest
✗ 3. more kind
✓ 4. kinder

Question ID : 441009349185
Option 1 ID : 4410091363148
Option 2 ID : 4410091363146
Option 3 ID : 4410091363147
Option 4 ID : 4410091363149

Q.5 Select the option that will improve the highlighted part of the given sentence.

This is the difficult issue we've faced so far.

Ans
✓ 1. the most difficult
✗ 2. the much difficult
✗ 3. the very difficult
✗ 4. the more difficult

Question ID : 441009349186
Option 1 ID : 4410091363152
Option 2 ID : 4410091363150
Option 3 ID : 4410091363151
Option 4 ID : 4410091363153

Q.6 Select the most appropriate adverb to fill in the blank.

This is the reason _____ I left.

Ans
✗ 1. when
✗ 2. so
✓ 3. why
✗ 4. which

Question ID : 441009349239
Option 1 ID : 4410091363365
Option 2 ID : 4410091363363
Option 3 ID : 4410091363364
Option 4 ID : 4410091363362

Q.7 Select the sentence that contains a grammatical error.

Ans
✗ 1. I saw an owl sitting on the branch.
✓ 2. He found an European coin in his grandfather's collection.
✗ 3. They needed a unique solution to the problem.
✗ 4. She is an honest person who never lies.

Question ID : 441009131317
Option 1 ID : 441009521838
Option 2 ID : 441009521836
Option 3 ID : 441009521837
Option 4 ID : 441009521835

Q.8 Select the most appropriate article to fill in the blank. If no article is needed, select 'No article required'.

The boys, exposing themselves to _____ rain, ran out to collect the frozen pearls.

Ans
✗ 1. an
✗ 2. No article required
✓ 3. the
✗ 4. a

Question ID : 441009349183
Option 1 ID : 4410091363140
Option 2 ID : 4410091363141
Option 3 ID : 4410091363139
Option 4 ID : 4410091363138

Q.9 Select the most appropriate option to fill in the blank.

Sachin is a/an _____ player than Rahul.

Ans
✓ 1. better
✗ 2. inferior
✗ 3. worst
✗ 4. troublesome

Question ID : 441009349176
Option 1 ID : 4410091363113
Option 2 ID : 4410091363111
Option 3 ID : 4410091363110
Option 4 ID : 4410091363112

Q.10 Parts of a sentence are given below in jumbled order. Arrange the parts in the correct order to form a meaningful sentence.

O. that it is only when freedom of opinion
P. becomes the compulsion to debate that
Q. the seed which our forefathers planted has produced food
R. experience tells us

Ans
✓ 1. ROPQ
✗ 2. QOPR
✗ 3. OPQR
✗ 4. ORQP

Question ID : 441009349506
Option 1 ID : 4410091364430
Option 2 ID : 4410091364431
Option 3 ID : 4410091364433
Option 4 ID : 4410091364432

Q.11 The following sentence has been split into four segments. Identify the segment that contains a grammatical error.

She was taken to hospital for treatment after the accident.

Ans
✓ 1. to hospital
✗ 2. She was taken
✗ 3. for treatment
✗ 4. after the accident

Question ID : 441009136090
Option 1 ID : 441009540807
Option 2 ID : 441009540806
Option 3 ID : 441009540808
Option 4 ID : 441009540809

Q.12 Select the option that rectifies the INCORRECTLY used adverb.

She sings beautiful.

Ans
✗ 1. more beautiful
✗ 2. most beautiful
✓ 3. beautifully
✗ 4. beauty

Question ID : 441009349013
Option 1 ID : 4410091362460
Option 2 ID : 4410091362461
Option 3 ID : 4410091362458
Option 4 ID : 4410091362459

Q.13 Parts of a sentence are given below in jumbled order. Arrange the parts in the correct order to form a meaningful sentence.

O. the whole activity of learning; not only to gather information about various subjects
P. but to understand
Q. the function of teachers is to help the student to learn – not this or that subject only
R. but primarily to be complete human beings

Ans
✗ 1. ORPQ
✗ 2. RPOQ
✓ 3. QPOR
✗ 4. POQR

Question ID : 441009349505
Option 1 ID : 4410091364426
Option 2 ID : 4410091364429
Option 3 ID : 4410091364427
Option 4 ID : 4410091364428

QuickSarkari.com | WhatsApp Channel | Telegram: t.me/quick_sarkari

Q.14 **Select the most appropriate article to fill in the blank. If no article is needed, select 'No article required'.**

I own _____ book on the table.

Question ID : **441009349197**
Option 1 ID : **4410091363195**
Option 2 ID : **4410091363196**
Option 3 ID : **4410091363197**
Option 4 ID : **4410091363194**

Ans
✗ 1. an
✓ 2. the
✗ 3. No article required
✗ 4. a

Q.15 **Select the most appropriate option to fill in the blank.**

He quickly jumped _____ conclusions without listening to the entire story.

Question ID : **441009349227**
Option 1 ID : **4410091363315**
Option 2 ID : **4410091363317**
Option 3 ID : **4410091363314**
Option 4 ID : **4410091363316**

Ans
✗ 1. at
✗ 2. over
✓ 3. to
✗ 4. on

Comprehension:

Read the following passage carefully and answer the questions that follows.

Global warming is one of the most pressing issues of our time. It refers to the gradual increase in Earth's average surface temperature due to rising levels of greenhouse gases such as carbon dioxide, methane, and nitrous oxide. These gases trap heat in the atmosphere, creating a "greenhouse effect." Human activities like burning fossil fuels, deforestation, and industrial processes have significantly contributed to this phenomenon. The consequences of global warming are far-reaching. Melting ice caps, rising sea levels, extreme weather patterns, and loss of biodiversity are just a few of the alarming outcomes. These changes not only threaten natural ecosystems but also pose significant risks to human societies, particularly those in vulnerable regions.

Efforts to combat global warming include reducing carbon emissions, adopting renewable energy sources, and protecting forests. However, addressing this challenge requires global cooperation and a commitment to sustainable practices. Global warming serves as a reminder of humanity's shared responsibility to protect the planet for future generations.

Question ID : **441009349522**
Option 1 ID : **4410091364492**
Option 2 ID : **4410091364491**
Option 3 ID : **4410091364490**
Option 4 ID : **4410091364493**

SubQuestion No : 16

Q.16 **What tone does the author adopt in the passage?**

Ans
✗ 1. Persuasive
✗ 2. Neutral
✗ 3. Alarmist
✓ 4. Informative

Comprehension:

Read the following passage carefully and answer the questions that follows.

Global warming is one of the most pressing issues of our time. It refers to the gradual increase in Earth's average surface temperature due to rising levels of greenhouse gases such as carbon dioxide, methane, and nitrous oxide. These gases trap heat in the atmosphere, creating a "greenhouse effect." Human activities like burning fossil fuels, deforestation, and industrial processes have significantly contributed to this phenomenon. The consequences of global warming are far-reaching. Melting ice caps, rising sea levels, extreme weather patterns, and loss of biodiversity are just a few of the alarming outcomes. These changes not only threaten natural ecosystems but also pose significant risks to human societies, particularly those in vulnerable regions.

Efforts to combat global warming include reducing carbon emissions, adopting renewable energy sources, and protecting forests. However, addressing this challenge requires global cooperation and a commitment to sustainable practices. Global warming serves as a reminder of humanity's shared responsibility to protect the planet for future generations.

Question ID : **441009349518**
Option 1 ID : **4410091364474**
Option 2 ID : **4410091364475**
Option 3 ID : **4410091364477**
Option 4 ID : **4410091364476**

SubQuestion No : 17

Q.17 **What is the most appropriate title for the passage?**

Ans
✗ 1. The Science of Greenhouse Gases
✓ 2. Global Warming: Causes and Consequences
✗ 3. The Impact of Industrial Processes
✗ 4. Renewable Energy Solutions

Comprehension:

Read the following passage carefully and answer the questions that follows.

Global warming is one of the most pressing issues of our time. It refers to the gradual increase in Earth's average surface temperature due to rising levels of greenhouse gases such as carbon dioxide, methane, and nitrous oxide. These gases trap heat in the atmosphere, creating a "greenhouse effect." Human activities like burning fossil fuels, deforestation, and industrial processes have significantly contributed to this phenomenon. The consequences of global warming are far-reaching. Melting ice caps, rising sea levels, extreme weather patterns, and loss of biodiversity are just a few of the alarming outcomes. These changes not only threaten natural ecosystems but also pose significant risks to human societies, particularly those in vulnerable regions.

Efforts to combat global warming include reducing carbon emissions, adopting renewable energy sources, and protecting forests. However, addressing this challenge requires global cooperation and a commitment to sustainable practices. Global warming serves as a reminder of humanity's shared responsibility to protect the planet for future generations.

Question ID : **441009349521**
Option 1 ID : **4410091364486**
Option 2 ID : **4410091364487**
Option 3 ID : **4410091364488**
Option 4 ID : **4410091364489**

SubQuestion No : 18

Q.18 **What inference can be drawn from the passage?**

Ans
✗ 1. Global warming is irreversible.
✓ 2. Human activities have a significant impact on the environment.
✗ 3. Renewable energy alone can stop global warming.
✗ 4. Global warming affects only natural ecosystems.

Comprehension:

Read the following passage carefully and answer the questions that follows.

Global warming is one of the most pressing issues of our time. It refers to the gradual increase in Earth's average surface temperature due to rising levels of greenhouse gases such as carbon dioxide, methane, and nitrous oxide. These gases trap heat in the atmosphere, creating a "greenhouse effect." Human activities like burning fossil fuels, deforestation, and industrial processes have significantly contributed to this phenomenon. The consequences of global warming are far-reaching. Melting ice caps, rising sea levels, extreme weather patterns, and loss of biodiversity are just a few of the alarming outcomes. These changes not only threaten natural ecosystems but also pose significant risks to human societies, particularly those in vulnerable regions.

Efforts to combat global warming include reducing carbon emissions, adopting renewable energy sources, and protecting forests. However, addressing this challenge requires global cooperation and a commitment to sustainable practices. Global warming serves as a reminder of humanity's shared responsibility to protect the planet for future generations.

Question ID : **441009349519**
Option 1 ID : **4410091364479**
Option 2 ID : **4410091364478**
Option 3 ID : **4410091364481**
Option 4 ID : **4410091364480**

SubQuestion No : 19

Q.19 **What is the central theme of the passage?**

Ans
✗ 1. The global impact of rising sea levels
✗ 2. The dangers of industrial processes on biodiversity
✗ 3. The role of renewable energy in combating climate change
✓ 4. Understanding global warming and how to address it

QuickSarkari.com | WhatsApp Channel | Telegram: t.me/quick_sarkari

Comprehension:

Read the following passage carefully and answer the questions that follows.

Global warming is one of the most pressing issues of our time. It refers to the gradual increase in Earth's average surface temperature due to rising levels of greenhouse gases such as carbon dioxide, methane, and nitrous oxide. These gases trap heat in the atmosphere, creating a "greenhouse effect." Human activities like burning fossil fuels, deforestation, and industrial processes have significantly contributed to this phenomenon. The consequences of global warming are far-reaching. Melting ice caps, rising sea levels, extreme weather patterns, and loss of biodiversity are just a few of the alarming outcomes. These changes not only threaten natural ecosystems but also pose significant risks to human societies, particularly those in vulnerable regions.

Efforts to combat global warming include reducing carbon emissions, adopting renewable energy sources, and protecting forests. However, addressing this challenge requires global cooperation and a commitment to sustainable practices. Global warming serves as a reminder of humanity's shared responsibility to protect the planet for future generations.

Question ID : **441009349520**
Option 1 ID : **4410091364483**
Option 2 ID : **4410091364482**
Option 3 ID : **4410091364484**
Option 4 ID : **4410091364485**

SubQuestion No : 20

Q.20 **Which fact is mentioned in the passage?**

Ans
✔ 1. Deforestation is a significant contributor to global warming.
✘ 2. Global warming is caused solely by natural factors.
✘ 3. Renewable energy is more expensive than fossil fuels.
✘ 4. Rising sea levels are only a minor concern.

Section : **Test of English Language and Comprehension1**

Q.1 **Select the most appropriate meaning of the given proverb.**

Money talks

Question ID : **441009350124**
Option 1 ID : **4410091366760**
Option 2 ID : **4410091366758**
Option 3 ID : **4410091366759**
Option 4 ID : **4410091366761**

Ans
✘ 1. Money can buy a good speaker.
✘ 2. Money cannot remain silent.
✔ 3. Money has power to influence others.
✘ 4. Money can talk but it cannot walk.

Q.2 **Parts of a sentence are given below in jumbled order. Arrange the parts in the correct order to form a meaningful sentence.**

P. when an alarm clock
S. by my bed
Q. rings on the table
R. I get up in the morning

Question ID : **441009349512**
Option 1 ID : **4410091364455**
Option 2 ID : **4410091364454**
Option 3 ID : **4410091364457**
Option 4 ID : **4410091364456**

Ans
✔ 1. RPQS
✘ 2. PSQR
✘ 3. RSPQ
✘ 4. PQRS

Q.3 **Select the most appropriate meaning of the given proverb.**

You can't have your cake and eat it too.

Question ID : **441009349853**
Option 1 ID : **4410091365675**
Option 2 ID : **4410091365676**
Option 3 ID : **4410091365677**
Option 4 ID : **4410091365674**

Ans
✘ 1. You must finish your food before starting something new.
✘ 2. Sharing your possessions will bring more happiness.
✘ 3. It's important to choose carefully.
✔ 4. You can't enjoy two benefits at the same time.

Q.4 **Select the option that can be used as a one-word substitute for the given group of words.**

A medical professional who specialises in the diagnosis and treatment of mental disorders

Question ID : **441009380574**
Option 1 ID : **4410091488101**
Option 2 ID : **4410091488102**
Option 3 ID : **4410091488103**
Option 4 ID : **4410091488104**

Ans
✘ 1. Psychologist
✔ 2. Psychiatrist
✘ 3. Neurologist
✘ 4. Surgeon

Q.5 **Select the most appropriate option that can be used as a one-word substitute for the given group of word.**

A person who speaks more than one language

Question ID : **441009382161**
Option 1 ID : **4410091494322**
Option 2 ID : **4410091494323**
Option 3 ID : **4410091494321**
Option 4 ID : **4410091494320**

Ans
✘ 1. Patrimony
✔ 2. Polyglot
✘ 3. Philogynist
✘ 4. Linguist

Q.6 **Select the option that can be used as a one-word substitute for the given group of words.**

A person who acts against religion

Question ID : **441009370034**
Option 1 ID : **4410091446079**
Option 2 ID : **4410091446078**
Option 3 ID : **4410091446077**
Option 4 ID : **4410091446080**

Ans
✔ 1. Heretic
✘ 2. Rebel
✘ 3. Apostate
✘ 4. Virtuoso

Q.7 **Select the most appropriate synonym of the underlined word in the given sentence.**

She had good <u>fluency</u> in the Spanish language.

Question ID : **441009350101**
Option 1 ID : **4410091366666**
Option 2 ID : **4410091366669**
Option 3 ID : **4410091366667**
Option 4 ID : **4410091366668**

Ans
✔ 1. Eloquence
✘ 2. Contentment
✘ 3. Grandeur
✘ 4. Belief

Q.8 **Select the most appropriate meaning of the given proverb.**

Least said, soonest mended.

Question ID : **441009349893**
Option 1 ID : **4410091365836**
Option 2 ID : **4410091365835**
Option 3 ID : **4410091365837**
Option 4 ID : **4410091365834**

Ans
✘ 1. The quieter you are, the more people will listen to you.
✔ 2. Bad situations can be quickly forgotten if people stop talking about them.
✘ 3. A problem can only be solved by discussing it in detail.
✘ 4. Create difficulty through continuous silence.

QuickSarkari.com | WhatsApp Channel | Telegram: t.me/quick_sarkari

Q.9 **Select the most appropriate meaning of the given proverb.**

Four eyes see more than two.

Ans
- ✗ 1. Teamwork is always better for solving complicated problems.
- ✓ 2. Two people working together can often accomplish more.
- ✗ 3. The more people work the faster the work gets done.
- ✗ 4. Two people will bring in two contrasting perspectives.

Question ID : **441009349917**
Option 1 ID : **4410091365933**
Option 2 ID : **4410091365932**
Option 3 ID : **4410091365930**
Option 4 ID : **4410091365931**

Q.10 **Select the most appropriate synonym of the given word.**

Apposite

Ans
- ✗ 1. Distress
- ✗ 2. Assent
- ✓ 3. Relevant
- ✗ 4. Terrific

Question ID : **441009350122**
Option 1 ID : **4410091366751**
Option 2 ID : **4410091366753**
Option 3 ID : **4410091366752**
Option 4 ID : **4410091366750**

Q.11 **Select the most appropriate ANTONYM of the given word.**

Judicious

Ans
- ✗ 1. Unstable
- ✗ 2. Unlawful
- ✗ 3. Impure
- ✓ 4. Indiscreet

Question ID : **441009350131**
Option 1 ID : **4410091366787**
Option 2 ID : **4410091366789**
Option 3 ID : **4410091366786**
Option 4 ID : **4410091366788**

Q.12 **Select the option that can be used as a one-word substitute for the given phrase.**

A medical professional who specialises in the diagnosis and treatment of mental disorders

Ans
- ✗ 1. Neurologist
- ✓ 2. Psychiatrist
- ✗ 3. Psychologist
- ✗ 4. Surgeon

Question ID : **441009382179**
Option 1 ID : **4410091494394**
Option 2 ID : **4410091494393**
Option 3 ID : **4410091494392**
Option 4 ID : **4410091494395**

Q.13 **Select the correct spelling of the underlined INCORRECTLY spelt word in the given sentence.**

They recived a letter from the President.

Ans
- ✗ 1. riceived
- ✗ 2. recieved
- ✗ 3. reeceived
- ✓ 4. received

Question ID : **441009350026**
Option 1 ID : **4410091366369**
Option 2 ID : **4410091366366**
Option 3 ID : **4410091366368**
Option 4 ID : **4410091366367**

Q.14 **Select the most appropriate ANTONYM of the given word.**

Expel

Ans
- ✗ 1. Spew
- ✓ 2. Admit
- ✗ 3. Deny
- ✗ 4. Inhibit

Question ID : **441009350110**
Option 1 ID : **4410091366702**
Option 2 ID : **4410091366704**
Option 3 ID : **4410091366705**
Option 4 ID : **4410091366703**

Q.15 **Select the INCORRECTLY spelt word.**

Ans
- ✗ 1. vilify
- ✗ 2. wrought
- ✓ 3. surmisse
- ✗ 4. despised

Question ID : **441009350011**
Option 1 ID : **4410091366306**
Option 2 ID : **4410091366307**
Option 3 ID : **4410091366308**
Option 4 ID : **4410091366309**

Comprehension:

Read the following passage and answer the questions.

The Pandya dynasty was one of the most influential ancient Tamil dynasties. Its prominence is documented in Sangam literature, which provides insights into its social, political, and economic structure. Women played an essential role, often excelling in arts, education, and governance. Temples were not only religious centres but also hubs for education, arts, and public discourse. The Tamil Sangam assemblies nurtured literature, poetry, and scholarly debates, reflecting a vibrant cultural life. The Pandyas were known for their efficient administration, with the king at the helm supported by a council of ministers. The kingdom was divided into regions governed by local chieftains. Military strength was a key aspect of Pandya rule, helping them resist invasions and expand their territory. Their capital, Madurai, was a significant centre of governance and culture. The Pandyas had a robust economy driven by agriculture, especially rice cultivation. Trade flourished due to their strategic location near coastal areas, enabling maritime connections with Rome, Greece, Southeast Asia, and China. Items like pearls, spices, ivory, and textiles were highly sought after. The Pandya dynasty's integration of governance, culture, and economy created a legacy that significantly influenced South Indian history.

Question ID : **441009349551**
Option 1 ID : **4410091364587**
Option 2 ID : **4410091364586**
Option 3 ID : **4410091364589**
Option 4 ID : **4410091364588**

SubQuestion No : 16

Q.16 **How does the Pandya dynasty's emphasis on cultural patronage relate to modern nation-building?**

Ans
- ✗ 1. It highlights the irrelevance of cultural investments in governance.
- ✓ 2. It demonstrates how cultural and artistic development strengthens national identity.
- ✗ 3. It suggests that ancient models of governance have no modern parallels
- ✗ 4. It proves that trade is superior to cultural investments in economic development.

Comprehension:

Read the following passage and answer the questions.

The Pandya dynasty was one of the most influential ancient Tamil dynasties. Its prominence is documented in Sangam literature, which provides insights into its social, political, and economic structure. Women played an essential role, often excelling in arts, education, and governance. Temples were not only religious centres but also hubs for education, arts, and public discourse. The Tamil Sangam assemblies nurtured literature, poetry, and scholarly debates, reflecting a vibrant cultural life. The Pandyas were known for their efficient administration, with the king at the helm supported by a council of ministers. The kingdom was divided into regions governed by local chieftains. Military strength was a key aspect of Pandya rule, helping them resist invasions and expand their territory. Their capital, Madurai, was a significant centre of governance and culture. The Pandyas had a robust economy driven by agriculture, especially rice cultivation. Trade flourished due to their strategic location near coastal areas, enabling maritime connections with Rome, Greece, Southeast Asia, and China. Items like pearls, spices, ivory, and textiles were highly sought after. The Pandya dynasty's integration of governance, culture, and economy created a legacy that significantly influenced South Indian history.

Question ID : **441009349552**
Option 1 ID : **4410091364590**
Option 2 ID : **4410091364591**
Option 3 ID : **4410091364592**
Option 4 ID : **4410091364593**

SubQuestion No : 17

Q.17 **Identify the structure of the passage.**

Ans
- ✗ 1. A chronological account
- ✗ 2. An argumentative structure
- ✗ 3. A comparative structure
- ✓ 4. A thematic progression

QuickSarkari.com | WhatsApp Channel | Telegram: t.me/quick_sarkari

Comprehension:

Read the following passage and answer the questions.

The Pandya dynasty was one of the most influential ancient Tamil dynasties. Its prominence is documented in Sangam literature, which provides insights into its social, political, and economic structure. Women played an essential role, often excelling in arts, education, and governance. Temples were not only religious centres but also hubs for education, arts, and public discourse. The Tamil Sangam assemblies nurtured literature, poetry, and scholarly debates, reflecting a vibrant cultural life. The Pandyas were known for their efficient administration, with the king at the helm supported by a council of ministers. The kingdom was divided into regions governed by local chieftains. Military strength was a key aspect of Pandya rule, helping them resist invasions and expand their territory. Their capital, Madurai, was a significant centre of governance and culture. The Pandyas had a robust economy driven by agriculture, especially rice cultivation. Trade flourished due to their strategic location near coastal areas, enabling maritime connections with Rome, Greece, Southeast Asia, and China. Items like pearls, spices, ivory, and textiles were highly sought after. The Pandya dynasty's integration of governance, culture, and economy created a legacy that significantly influenced South Indian history.

Question ID : **441009349550**
Option 1 ID : **4410091364584**
Option 2 ID : **4410091364583**
Option 3 ID : **4410091364582**
Option 4 ID : **4410091364585**

SubQuestion No : 18

Q.18 **Identify the fact mentioned in the passage.**

Ans
✗ 1. Madurai's significance was limited to religious activities.
✓ 2. Temples were multi-functional, serving as cultural and educational hubs.
✗ 3. The Pandyas neglected military expansion in favour of trade.
✗ 4. Women in Pandya society were confined to domestic roles.

Comprehension:

Read the following passage and answer the questions.

The Pandya dynasty was one of the most influential ancient Tamil dynasties. Its prominence is documented in Sangam literature, which provides insights into its social, political, and economic structure. Women played an essential role, often excelling in arts, education, and governance. Temples were not only religious centres but also hubs for education, arts, and public discourse. The Tamil Sangam assemblies nurtured literature, poetry, and scholarly debates, reflecting a vibrant cultural life. The Pandyas were known for their efficient administration, with the king at the helm supported by a council of ministers. The kingdom was divided into regions governed by local chieftains. Military strength was a key aspect of Pandya rule, helping them resist invasions and expand their territory. Their capital, Madurai, was a significant centre of governance and culture. The Pandyas had a robust economy driven by agriculture, especially rice cultivation. Trade flourished due to their strategic location near coastal areas, enabling maritime connections with Rome, Greece, Southeast Asia, and China. Items like pearls, spices, ivory, and textiles were highly sought after. The Pandya dynasty's integration of governance, culture, and economy created a legacy that significantly influenced South Indian history.

Question ID : **441009349548**
Option 1 ID : **4410091364577**
Option 2 ID : **4410091364574**
Option 3 ID : **4410091364576**
Option 4 ID : **4410091364575**

SubQuestion No : 19

Q.19 **Select the most appropriate ANTONYM of the given word.**

Flourished

Ans
✗ 1. Persisted
✗ 2. Thrived
✓ 3. Deteriorated
✗ 4. Expanded

Comprehension:

Read the following passage and answer the questions.

The Pandya dynasty was one of the most influential ancient Tamil dynasties. Its prominence is documented in Sangam literature, which provides insights into its social, political, and economic structure. Women played an essential role, often excelling in arts, education, and governance. Temples were not only religious centres but also hubs for education, arts, and public discourse. The Tamil Sangam assemblies nurtured literature, poetry, and scholarly debates, reflecting a vibrant cultural life. The Pandyas were known for their efficient administration, with the king at the helm supported by a council of ministers. The kingdom was divided into regions governed by local chieftains. Military strength was a key aspect of Pandya rule, helping them resist invasions and expand their territory. Their capital, Madurai, was a significant centre of governance and culture. The Pandyas had a robust economy driven by agriculture, especially rice cultivation. Trade flourished due to their strategic location near coastal areas, enabling maritime connections with Rome, Greece, Southeast Asia, and China. Items like pearls, spices, ivory, and textiles were highly sought after. The Pandya dynasty's integration of governance, culture, and economy created a legacy that significantly influenced South Indian history.

Question ID : **441009349549**
Option 1 ID : **4410091364579**
Option 2 ID : **4410091364580**
Option 3 ID : **4410091364578**
Option 4 ID : **4410091364581**

SubQuestion No : 20

Q.20 **What can be inferred from "prioritised maritime trade over inland trade"?**

Ans
✗ 1. Inland roads were undeveloped.
✗ 2. They lacked agricultural resources for local trade.
✓ 3. Maritime trade provided access to wealthier markets like Rome and Greece.
✗ 4. Inland trade was considered culturally inferior.

Section : **Test of Hindi Language and Comprehension**

Q.1 निम्नलिखित में से शुद्ध वाक्य का चयन कीजिए-

Question ID : **441009354550**
Option 1 ID : **4410091384441**
Option 2 ID : **4410091384442**
Option 3 ID : **4410091384443**
Option 4 ID : **4410091384440**

Ans
✗ 1. रमेश और सुरेश बाजार से फल और सब्जीया लेकर आए है।
✗ 2. रमेश और सुरेश बाजार से फलो और सब्जियां लेकर आए हैं।
✗ 3. रमेश और सुरेश बाजर से फल और सब्जियां लेकर आए।
✓ 4. रमेश और सुरेश बाजार से फल और सब्जियां लेकर आए हैं।

Q.2 निम्नलिखित वाक्यों में से तीन वाक्य विशेष संदर्भ के कारण एक दूसरे संबन्धित हैं किन्तु एक वाक्य भिन्न है अतः उस अतिरिक्त वाक्य का चयन करें।
देखो दीपक पेड़ से आम तोड़ रहा है। वह एक आम मनीष को दे रहा है। मनीष मज़े से खा रहा है। दीपक बाकी बचे आम लेकर जा रहा है।

Question ID : **441009354540**
Option 1 ID : **4410091384401**
Option 2 ID : **4410091384403**
Option 3 ID : **4410091384402**
Option 4 ID : **4410091384400**

Ans
✗ 1. देखो दीपक पेड़ से आम तोड़ रहा है।
✓ 2. मनीष मज़े से खा रहा है।
✗ 3. वह एक आम मनीष को दे रहा है।
✗ 4. दीपक बाकी बचे आम लेकर जा रहा है।

Q.3 निम्नलिखित मुहावरे का सही अर्थ पहचानें।
कटी पतंग होना

Question ID : **441009354127**
Option 1 ID : **4410091382751**
Option 2 ID : **4410091382749**
Option 3 ID : **4410091382748**
Option 4 ID : **4410091382750**

Ans
✗ 1. यायावर होना
✗ 2. मित्रता बढ़ाना
✓ 3. निराश्रित होना
✗ 4. भ्रमण करना

Q.4 उचित विशेषण का प्रयोग कर वाक्य पूर्ण करें -
आपके सूट में_____कपड़ा लगेगा

Question ID : **441009353890**
Option 1 ID : **4410091381800**
Option 2 ID : **4410091381803**
Option 3 ID : **4410091381801**
Option 4 ID : **4410091381802**

Ans
✗ 1. दस क्विंटल
✗ 2. दस लीटर
✓ 3. दो मीटर
✗ 4. चालीस

QuickSarkari.com | WhatsApp Channel | Telegram: t.me/quick_sarkari

Q.5 निम्नलिखित मुहावरे का सही अर्थ पहचानें।
आड़े हाथ लेना

Ans
✗ 1. दमन करना
✗ 2. हाथों से दबाना
✓ 3. खरी-खरी सुनाना
✗ 4. बदला लेना

Question ID : **441009354128**
Option 1 ID : **4410091382754**
Option 2 ID : **4410091382753**
Option 3 ID : **4410091382752**
Option 4 ID : **4410091382755**

Q.6 निम्नलिखित में से शुद्ध वाक्य का चयन कीजिये-

Ans
✗ 1. संस्कृति में भारत की समृद्धि और विविधता का अद्वितीय संयोजन है।
✗ 2. समृद्धि का और विविधता का अद्वितीय भारत की संस्कृति में संयोजन है।
✓ 3. भारत की संस्कृति में विविधता और समृद्धि का अद्वितीय संयोजन है।
✗ 4. संयोजन में भारत की संस्कृति अद्वितीय का और समृद्धि विविधता है।

Question ID : **441009354549**
Option 1 ID : **4410091384437**
Option 2 ID : **4410091384439**
Option 3 ID : **4410091384436**
Option 4 ID : **4410091384438**

Q.7 निम्नलिखित वाक्यांश के आधार पर सार्थक शब्द का चयन करें।
उपकार के लिए किया गया उपकार ____

Ans
✓ 1. प्रत्युपकार
✗ 2. कृपा
✗ 3. कृतघ्न
✗ 4. दया

Question ID : **441009354512**
Option 1 ID : **4410091384288**
Option 2 ID : **4410091384290**
Option 3 ID : **4410091384289**
Option 4 ID : **4410091384291**

Q.8 दिए गए वाक्य में उचित क्रिया शब्द का चयन करके रिक्त स्थान की पूर्ति करें-
हिमालय की तलहटी से सागर की लहरें बार-बार _____ हैं।

Ans
✗ 1. बिखरती
✗ 2. सँभलती
✗ 3. लहराती
✓ 4. टकराती

Question ID : **441009353878**
Option 1 ID : **4410091381752**
Option 2 ID : **4410091381755**
Option 3 ID : **4410091381754**
Option 4 ID : **4410091381753**

Q.9 निम्नलिखित वाक्यों में से तीन वाक्य विशेष संदर्भ के कारण एक दूसरे संबन्धित हैं किन्तु एक वाक्य भिन्न है अतः उस अतिरिक्त वाक्य का चयन करें।
आपसे अनुरोध है कृपया मेरा यह कार्य कर दें? मुझे कल ही कहीं जाना था। क्या मेरा कार्य अन्य से पहले कर देंगे? मैं पहले ही बहुत देर कर चुका हूँ।

Ans
✗ 1. आपसे अनुरोध है कृपया मेरा यह कार्य कर दें?
✓ 2. मुझे कल ही कहीं जाना था।
✗ 3. मैं पहले ही बहुत देर कर चुका हूँ।
✗ 4. क्या मेरा कार्य अन्य से पहले कर देंगे?

Question ID : **441009354538**
Option 1 ID : **4410091384394**
Option 2 ID : **4410091384395**
Option 3 ID : **4410091384393**
Option 4 ID : **4410091384392**

Q.10 निम्नलिखित में से शुद्ध वाक्य का चयन कीजिये-

Ans
✗ 1. वैज्ञानिक समाज के अनुसंधान विकास में महत्वपूर्ण भूमिका निभाता है।
✗ 2. भूमिका महत्वपूर्ण समाज के वैज्ञानिक अनुसंधान विकास में निभाता है।
✓ 3. वैज्ञानिक अनुसंधान समाज के विकास में महत्वपूर्ण भूमिका निभाता है।
✗ 4. अनुसंधान समाज के विकास वैज्ञानिक में भूमिका महत्वपूर्ण निभाता है।

Question ID : **441009354548**
Option 1 ID : **4410091384435**
Option 2 ID : **4410091384433**
Option 3 ID : **4410091384432**
Option 4 ID : **4410091384434**

Q.11 अपादान कारक से वाक्य पूर्ण करें -
पानी गिलास _____ छलक गया।

Ans
✗ 1. को
✓ 2. से
✗ 3. में
✗ 4. ने

Question ID : **441009353888**
Option 1 ID : **4410091381794**
Option 2 ID : **4410091381793**
Option 3 ID : **4410091381792**
Option 4 ID : **4410091381795**

Q.12 निम्नलिखित वाक्य खंड क्रम से लिखें।
1. प्रतियोगिता है,
2. हिस्सा लेना होगा
3. तुम्हें उसमें
4. तुम्हारे स्कूल में

Ans
✗ 1. 1342
✗ 2. 2431
✓ 3. 4132
✗ 4. 1234

Question ID : **441009354522**
Option 1 ID : **4410091384331**
Option 2 ID : **4410091384329**
Option 3 ID : **4410091384328**
Option 4 ID : **4410091384330**

Q.13 उचित विशेषण से वाक्य पूर्ण करें -
_____ आदमी को यहाँ बुलाओ

Ans
✓ 1. उस
✗ 2. वे
✗ 3. यह
✗ 4. मेरे

Question ID : **441009353882**
Option 1 ID : **4410091381770**
Option 2 ID : **4410091381768**
Option 3 ID : **4410091381769**
Option 4 ID : **4410091381771**

Q.14 निम्नलिखित वाक्यांश के आधार पर सार्थक शब्द का चयन करें।
जो भोजन रोगी के लिए निषिद्ध है_____

Ans
✗ 1. दही
✓ 2. अपथ्य
✗ 3. नेपथ्य
✗ 4. वसा

Question ID : **441009354515**
Option 1 ID : **4410091384303**
Option 2 ID : **4410091384300**
Option 3 ID : **4410091384301**
Option 4 ID : **4410091384302**

Q.15 उचित कारक चिह्न चुनकर निम्नलिखित वाक्य के रिक्त स्थान की पूर्ति करें।-
'वह दीवाली ___ यहाँ टिकने का नहीं।

Ans
✗ 1. के
✗ 2. ने
✗ 3. से
✓ 4. तक

Question ID : **441009353959**
Option 1 ID : **4410091382077**
Option 2 ID : **4410091382078**
Option 3 ID : **4410091382079**
Option 4 ID : **4410091382076**

QuickSarkari.com | WhatsApp Channel | Telegram: t.me/quick_sarkari

Comprehension:

निम्नलिखित गद्यांश को ध्यानपूर्वक पढ़ें और पूछे गए प्रश्नों के उत्तर के लिए दिए गए विकल्पों में से सर्वाधिक उपयुक्त विकल्प को चुनिए-
मानव को मानव के रूप में सम्मानित करके ही हम जातीयता, प्रांतीयता, राष्ट्रीयता और अंतरराष्ट्रीयता के भेद को तोड़ सकते हैं। आज मानव मानव से दूर हटता जा रहा है। वह भूल चुका है कि देश, धर्म और जाति के भिन्न होते हुए भी हम सर्वप्रथम मानव हैं और समान हैं तथा सभी की भावनाएँ और लक्ष्य एक ही हैं। आज धर्म, देश, सत्ता, धन आदि का भेद होने से एक मानव दूसरे मानव को मानव ही नहीं मानता। कभी-कभी स्वधर्मी विधर्मी को स्वदेशी विदेशी को, धनिक निर्धन को तथा विद्वान निरक्षर को इंसान ही नहीं समझता है और वह भूल जाता है कि दूसरे को भी समान रूप से इच्छा, भूख - प्यास सताते हैं तथा उसे भी प्रेम और आदर चाहिए। वह भूल जाता है कि दूसरे में भी स्वाभिमान का पुट है, उसे भी विश्राम की आवश्यकता है और उसे भी अपने बच्चे प्रिय है अथवा वह भी अपनी संतान के लिए कुछ करना चाहता है। सत्ताधारी मनुष्य दूसरों को कुचलकर सुख-सुविधाओं पर एकाधिकार कर लेना चाहता है, लेकिन एक आकाश के नीचे रहने वाले इंसान तो सब एक हैं, भले ही कोई कुदाल लेकर श्रमिक का कार्य करता हो, कोई कलम लेकर दफ़्तर का; किंतु लक्ष्य एक है-समाज का अभ्युदय और विकास । कार्य-भेद होते हुए भी सब इंसानी बिरादरी के एक - से हकदार हैं। सब भाई-भाई ही तो हैं, सब ही अपने-अपने स्थान पर विशेष हैं। मानव का नाता ही श्रेष्ठ नाता है। किसी को 'नौकर' कहकर पुकारना मानव का ही अपमान है। 'सहयोगी', 'सहायक' अथवा 'सस्नेह' उसका नाम कहकर संबोधन करना मधुर और प्रिय है।

Question ID : **441009354898**
Option 1 ID : **4410091385679**
Option 2 ID : **4410091385678**
Option 3 ID : **4410091385677**
Option 4 ID : **4410091385676**

SubQuestion No : 16

Q.16 **सत्ताधारी मनुष्य क्या कर लेना चाहता है?**

Ans
- ✔ 1. सुख-सुविधाओं पर एकाधिकार
- ✘ 2. समाज पर अधिकार
- ✘ 3. मित्रों और सहयोगियों पर एकाधिकार
- ✘ 4. सत्ता पर अधिकार

Comprehension:

निम्नलिखित गद्यांश को ध्यानपूर्वक पढ़ें और पूछे गए प्रश्नों के उत्तर के लिए दिए गए विकल्पों में से सर्वाधिक उपयुक्त विकल्प को चुनिए-
मानव को मानव के रूप में सम्मानित करके ही हम जातीयता, प्रांतीयता, राष्ट्रीयता और अंतरराष्ट्रीयता के भेद को तोड़ सकते हैं। आज मानव मानव से दूर हटता जा रहा है। वह भूल चुका है कि देश, धर्म और जाति के भिन्न होते हुए भी हम सर्वप्रथम मानव हैं और समान हैं तथा सभी की भावनाएँ और लक्ष्य एक ही हैं। आज धर्म, देश, सत्ता, धन आदि का भेद होने से एक मानव दूसरे मानव को मानव ही नहीं मानता। कभी-कभी स्वधर्मी विधर्मी को स्वदेशी विदेशी को, धनिक निर्धन को तथा विद्वान निरक्षर को इंसान ही नहीं समझता है और वह भूल जाता है कि दूसरे को भी समान रूप से इच्छा, भूख - प्यास सताते हैं तथा उसे भी प्रेम और आदर चाहिए। वह भूल जाता है कि दूसरे में भी स्वाभिमान का पुट है, उसे भी विश्राम की आवश्यकता है और उसे भी अपने बच्चे प्रिय है अथवा वह भी अपनी संतान के लिए कुछ करना चाहता है। सत्ताधारी मनुष्य दूसरों को कुचलकर सुख-सुविधाओं पर एकाधिकार कर लेना चाहता है, लेकिन एक आकाश के नीचे रहने वाले इंसान तो सब एक हैं, भले ही कोई कुदाल लेकर श्रमिक का कार्य करता हो, कोई कलम लेकर दफ़्तर का; किंतु लक्ष्य एक है-समाज का अभ्युदय और विकास । कार्य-भेद होते हुए भी सब इंसानी बिरादरी के एक - से हकदार हैं। सब भाई-भाई ही तो हैं, सब ही अपने-अपने स्थान पर विशेष हैं। मानव का नाता ही श्रेष्ठ नाता है। किसी को 'नौकर' कहकर पुकारना मानव का ही अपमान है। 'सहयोगी', 'सहायक' अथवा 'सस्नेह' उसका नाम कहकर संबोधन करना मधुर और प्रिय है।

Question ID : **441009354897**
Option 1 ID : **4410091385675**
Option 2 ID : **4410091385673**
Option 3 ID : **4410091385672**
Option 4 ID : **4410091385674**

SubQuestion No : 17

Q.17 **गद्यांश में प्रयुक्त 'आकाश' शब्द का सर्वाधिक उपयुक्त विलोम शब्द है -**

Ans
- ✘ 1. नरक
- ✘ 2. गगन
- ✘ 3. भूमि
- ✔ 4. पाताल

Comprehension:

निम्नलिखित गद्यांश को ध्यानपूर्वक पढ़ें और पूछे गए प्रश्नों के उत्तर के लिए दिए गए विकल्पों में से सर्वाधिक उपयुक्त विकल्प को चुनिए-
मानव को मानव के रूप में सम्मानित करके ही हम जातीयता, प्रांतीयता, राष्ट्रीयता और अंतरराष्ट्रीयता के भेद को तोड़ सकते हैं। आज मानव मानव से दूर हटता जा रहा है। वह भूल चुका है कि देश, धर्म और जाति के भिन्न होते हुए भी हम सर्वप्रथम मानव हैं और समान हैं तथा सभी की भावनाएँ और लक्ष्य एक ही हैं। आज धर्म, देश, सत्ता, धन आदि का भेद होने से एक मानव दूसरे मानव को मानव ही नहीं मानता। कभी-कभी स्वधर्मी विधर्मी को स्वदेशी विदेशी को, धनिक निर्धन को तथा विद्वान निरक्षर को इंसान ही नहीं समझता है और वह भूल जाता है कि दूसरे को भी समान रूप से इच्छा, भूख - प्यास सताते हैं तथा उसे भी प्रेम और आदर चाहिए। वह भूल जाता है कि दूसरे में भी स्वाभिमान का पुट है, उसे भी विश्राम की आवश्यकता है और उसे भी अपने बच्चे प्रिय है अथवा वह भी अपनी संतान के लिए कुछ करना चाहता है। सत्ताधारी मनुष्य दूसरों को कुचलकर सुख-सुविधाओं पर एकाधिकार कर लेना चाहता है, लेकिन एक आकाश के नीचे रहने वाले इंसान तो सब एक हैं, भले ही कोई कुदाल लेकर श्रमिक का कार्य करता हो, कोई कलम लेकर दफ़्तर का; किंतु लक्ष्य एक है-समाज का अभ्युदय और विकास । कार्य-भेद होते हुए भी सब इंसानी बिरादरी के एक - से हकदार हैं। सब भाई-भाई ही तो हैं, सब ही अपने-अपने स्थान पर विशेष हैं। मानव का नाता ही श्रेष्ठ नाता है। किसी को 'नौकर' कहकर पुकारना मानव का ही अपमान है। 'सहयोगी', 'सहायक' अथवा 'सस्नेह' उसका नाम कहकर संबोधन करना मधुर और प्रिय है।

Question ID : **441009354896**
Option 1 ID : **4410091385670**
Option 2 ID : **4410091385669**
Option 3 ID : **4410091385671**
Option 4 ID : **4410091385668**

SubQuestion No : 18

Q.18 **मानव को मानव के रूप में सम्मानित करने के लिए हमें क्या करना होगा?**

Ans
- ✘ 1. जातीयता, प्रांतीयता, राष्ट्रीयता और अंतरराष्ट्रीयता का भेद बढ़ाना
- ✔ 2. जातीयता, प्रांतीयता, राष्ट्रीयता और अंतरराष्ट्रीयता का भेद तोड़ना
- ✘ 3. जातीयता, प्रांतीयता, राष्ट्रीयता और अंतरराष्ट्रीयता के भेदों को फैलाना
- ✘ 4. जातीयता, प्रांतीयता. राष्ट्रीयता और अंतरराष्ट्रीयता का भेद जगाना

Comprehension:

निम्नलिखित गद्यांश को ध्यानपूर्वक पढ़ें और पूछे गए प्रश्नों के उत्तर के लिए दिए गए विकल्पों में से सर्वाधिक उपयुक्त विकल्प को चुनिए-
मानव को मानव के रूप में सम्मानित करके ही हम जातीयता, प्रांतीयता, राष्ट्रीयता और अंतरराष्ट्रीयता के भेद को तोड़ सकते हैं। आज मानव मानव से दूर हटता जा रहा है। वह भूल चुका है कि देश, धर्म और जाति के भिन्न होते हुए भी हम सर्वप्रथम मानव हैं और समान हैं तथा सभी की भावनाएँ और लक्ष्य एक ही हैं। आज धर्म, देश, सत्ता, धन आदि का भेद होने से एक मानव दूसरे मानव को मानव ही नहीं मानता। कभी-कभी स्वधर्मी विधर्मी को स्वदेशी विदेशी को, धनिक निर्धन को तथा विद्वान निरक्षर को इंसान ही नहीं समझता है और वह भूल जाता है कि दूसरे को भी समान रूप से इच्छा, भूख - प्यास सताते हैं तथा उसे भी प्रेम और आदर चाहिए। वह भूल जाता है कि दूसरे में भी स्वाभिमान का पुट है, उसे भी विश्राम की आवश्यकता है और उसे भी अपने बच्चे प्रिय है अथवा वह भी अपनी संतान के लिए कुछ करना चाहता है। सत्ताधारी मनुष्य दूसरों को कुचलकर सुख-सुविधाओं पर एकाधिकार कर लेना चाहता है, लेकिन एक आकाश के नीचे रहने वाले इंसान तो सब एक हैं, भले ही कोई कुदाल लेकर श्रमिक का कार्य करता हो, कोई कलम लेकर दफ़्तर का; किंतु लक्ष्य एक है-समाज का अभ्युदय और विकास । कार्य-भेद होते हुए भी सब इंसानी बिरादरी के एक - से हकदार हैं। सब भाई-भाई ही तो हैं, सब ही अपने-अपने स्थान पर विशेष हैं। मानव का नाता ही श्रेष्ठ नाता है। किसी को 'नौकर' कहकर पुकारना मानव का ही अपमान है। 'सहयोगी', 'सहायक' अथवा 'सस्नेह' उसका नाम कहकर संबोधन करना मधुर और प्रिय है।

Question ID : **441009354899**
Option 1 ID : **4410091385681**
Option 2 ID : **4410091385680**
Option 3 ID : **4410091385683**
Option 4 ID : **4410091385682**

SubQuestion No : 19

Q.19 **एक मानव दूसरे मानव को मानव क्यों नहीं मानता?**

Ans
- ✘ 1. साक्षर और निरक्षर को एक ही मानने का कारण
- ✔ 2. धर्म, देश, सत्ता, धन आदि का भेद होने का कारण
- ✘ 3. स्वाभिमान का भाव होने का कारण
- ✘ 4. परस्पर प्रेम और आदर का भाव होने का कारण

Comprehension:

निम्नलिखित गद्यांश को ध्यानपूर्वक पढ़ें और पूछे गए प्रश्नों के उत्तर के लिए दिए गए विकल्पों में से सर्वाधिक उपयुक्त विकल्प को चुनिए-
मानव को मानव के रूप में सम्मानित करके ही हम जातीयता, प्रांतीयता, राष्ट्रीयता और अंतरराष्ट्रीयता के भेद को तोड़ सकते हैं। आज मानव मानव से दूर हटता जा रहा है। वह भूल चुका है कि देश, धर्म और जाति के भिन्न होते हुए भी हम सर्वप्रथम मानव हैं और समान हैं तथा सभी की भावनाएँ और लक्ष्य एक ही हैं। आज धर्म, देश, सत्ता, धन आदि का भेद होने से एक मानव दूसरे मानव को मानव ही नहीं मानता। कभी-कभी स्वधर्मी विधर्मी को स्वदेशी विदेशी को, धनिक निर्धन को तथा विद्वान निरक्षर को इंसान ही नहीं समझता है और वह भूल जाता है कि दूसरे को भी समान रूप से इच्छा, भूख - प्यास सताते हैं तथा उसे भी प्रेम और आदर चाहिए। वह भूल जाता है कि दूसरे में भी स्वाभिमान का पुट है, उसे भी विश्राम की आवश्यकता है और उसे भी अपने बच्चे प्रिय है अथवा वह भी अपनी संतान के लिए कुछ करना चाहता है। सत्ताधारी मनुष्य दूसरों को कुचलकर सुख-सुविधाओं पर एकाधिकार कर लेना चाहता है, लेकिन एक आकाश के नीचे रहने वाले इंसान तो सब एक हैं, भले ही कोई कुदाल लेकर श्रमिक का कार्य करता हो, कोई कलम लेकर दफ़्तर का; किंतु लक्ष्य एक है-समाज का अभ्युदय और विकास । कार्य-भेद होते हुए भी सब इंसानी बिरादरी के एक - से हकदार हैं। सब भाई-भाई ही तो हैं, सब ही अपने-अपने स्थान पर विशेष हैं। मानव का नाता ही श्रेष्ठ नाता है। किसी को 'नौकर' कहकर पुकारना मानव का ही अपमान है। 'सहयोगी', 'सहायक' अथवा 'सस्नेह' उसका नाम कहकर संबोधन करना मधुर और प्रिय है।

Question ID : **441009354900**
Option 1 ID : **4410091385685**
Option 2 ID : **4410091385686**
Option 3 ID : **4410091385687**
Option 4 ID : **4410091385684**

SubQuestion No : 20

Q.20 **गद्यांश का सर्वाधिक उपयुक्त शीर्षक है -**

Ans
- ✘ 1. सहयोगी
- ✘ 2. कुदाल और श्रमिक
- ✔ 3. मानव मानव का नाता
- ✘ 4. धनिक और निर्धन

Section : **Test of Hindi Language and Comprehension1**

Q.1 **निम्नलिखित वाक्य को ध्यानपूर्वक पढ़ें और वाक्य में त्रुटि की पहचान कर वाक्य शुद्ध करें।**
दिसंबर मे हम सब कोल्लू-मनाली घूमने जाएगे।

Ans
- ✔ 1. दिसंबर में हम सब कुल्लू-मनाली घूमने जाएंगे।
- ✘ 2. दसंबर को हम सब कुल्ल-मनली घूमने जाएंगी।
- ✘ 3. दिसंबर में हमं सब कुल्लू-मनाली घोमने जाएंगे।
- ✘ 4. दिसबर में हम सभ कुल्लू-मानाली घूमने जाएंगे।

Question ID : **441009354074**
Option 1 ID : **4410091382536**
Option 2 ID : **4410091382537**
Option 3 ID : **4410091382539**
Option 4 ID : **4410091382538**

QuickSarkari.com | WhatsApp Channel | Telegram: t.me/quick_sarkari

Q.2 निम्नलिखित लोकोक्ति के उपयुक्त अर्थ का चयन करें
कंगाली में आटा गीला

Ans
✔ 1. अभाव में भी अभाव
✘ 2. स्थितियों का विपरीत होना
✘ 3. समय खराब होना
✘ 4. झूठ बार बार नहीं चलता

Question ID : **441009354148**
Option 1 ID : **4410091382834**
Option 2 ID : **4410091382832**
Option 3 ID : **4410091382835**
Option 4 ID : **4410091382833**

Q.3 निम्नलिखित वाक्य को ध्यानपूर्वक पढ़ें और वाक्य में त्रुटि की पहचान कर वाक्य शुद्ध करें।
मटा-पिता कि सेवा करना बच्चो का कर्तव्य है।

Ans
✔ 1. माता-पिता की सेवा करना बच्चों का कर्तव्य है।
✘ 2. मटा-पिता कि सेवा करना बच्चो से कर्तव्य हैं।
✘ 3. मता-पिता कि सेवा करना बच्चो का कर्त्तव्य हो।
✘ 4. मटा-पीता का सेवा करना बच्चो का कर्तव है।

Question ID : **441009354079**
Option 1 ID : **4410091382556**
Option 2 ID : **4410091382557**
Option 3 ID : **4410091382558**
Option 4 ID : **4410091382559**

Q.4 निम्नलिखित विकल्पों में से आधा का तत्सम शब्द पहचानें।

Ans
✘ 1. अधि
✘ 2. अभय
✘ 3. अर्द
✔ 4. अर्द्ध

Question ID : **441009354069**
Option 1 ID : **4410091382519**
Option 2 ID : **4410091382518**
Option 3 ID : **4410091382517**
Option 4 ID : **4410091382516**

Q.5 'वसन' का पर्यायवाची शब्द है -

Ans
✘ 1. पुस्तक
✘ 2. शस्त्र
✔ 3. कपड़ा
✘ 4. भोजन

Question ID : **441009354089**
Option 1 ID : **4410091382598**
Option 2 ID : **4410091382599**
Option 3 ID : **4410091382596**
Option 4 ID : **4410091382597**

Q.6 'आग्रह' का विलोम शब्द पहचानें-

Ans
✘ 1. निष्काम
✘ 2. आग्रहहीनता
✘ 3. निश्चय
✔ 4. दुराग्रह

Question ID : **441009354087**
Option 1 ID : **4410091382591**
Option 2 ID : **4410091382590**
Option 3 ID : **4410091382589**
Option 4 ID : **4410091382588**

Q.7 निम्नलिखित विकल्पों में से बदरंग का अनेकार्थि शब्द पहचानें।

Ans
✘ 1. बेरंग
✘ 2. अरंग
✘ 3. बदला
✔ 4. कुरंग

Question ID : **441009354063**
Option 1 ID : **4410091382494**
Option 2 ID : **4410091382493**
Option 3 ID : **4410091382495**
Option 4 ID : **4410091382492**

Q.8 निम्नलिखित वाक्य को ध्यानपूर्वक पढ़ें और वाक्य में त्रुटि की पहचान कर वाक्य शुद्ध करें।
तुम छट पर जाओ, काबूतरों को दाना दाल दो।

Ans
✔ 1. तुम छत पर जाओ, कबूतरों को दाना डाल दो।
✘ 2. तुम छत्त पर जाओ, कबूतरों को दाना डालो दो।
✘ 3. तम छट पर जाए, कबूतारों को दान डालो दें।
✘ 4. तुम छत पर से जाओ, कबूतरो को दाना दाल दो।

Question ID : **441009354080**
Option 1 ID : **4410091382560**
Option 2 ID : **4410091382563**
Option 3 ID : **4410091382562**
Option 4 ID : **4410091382561**

Q.9 'उल्टा तवा' मुहावरे का अर्थ है-

Ans
✘ 1. अत्यधिक गरीब
✔ 2. अत्यधिक काला
✘ 3. अत्यधिक कलुष
✘ 4. अत्यधिक गरम

Question ID : **441009354110**
Option 1 ID : **4410091382681**
Option 2 ID : **4410091382680**
Option 3 ID : **4410091382683**
Option 4 ID : **4410091382682**

Q.10 'अमृत' का विलोम शब्द पहचानें-

Ans
✘ 1. जल
✘ 2. संजीवनी
✔ 3. विष
✘ 4. प्यास

Question ID : **441009354088**
Option 1 ID : **4410091382594**
Option 2 ID : **4410091382595**
Option 3 ID : **4410091382592**
Option 4 ID : **4410091382593**

Q.11 निम्नलिखित विकल्पों में से खैरियत का अनेकार्थि शब्द पहचानें।

Ans
✘ 1. सही
✘ 2. अच्छा
✘ 3. सुखी
✔ 4. कुशल

Question ID : **441009354061**
Option 1 ID : **4410091382487**
Option 2 ID : **4410091382485**
Option 3 ID : **4410091382486**
Option 4 ID : **4410091382484**

Q.12 निम्नलिखित विकल्पों में से अंगूठा का तत्सम शब्द पहचानें।

Ans
✘ 1. अगुश
✔ 2. अंगुष्ठ
✘ 3. अंगशु
✘ 4. शीर्ष

Question ID : **441009354070**
Option 1 ID : **4410091382521**
Option 2 ID : **4410091382520**
Option 3 ID : **4410091382522**
Option 4 ID : **4410091382523**

Q.13 'आकाश का चाँद हाथ आना' मुहावरे का अर्थ है-

Ans
✔ 1. दुर्लभ वस्तु मिलना
✘ 2. वश में करना
✘ 3. बाधा दूर होना
✘ 4. उन्नति करना

Question ID : **441009354111**
Option 1 ID : **4410091382687**
Option 2 ID : **4410091382684**
Option 3 ID : **4410091382686**
Option 4 ID : **4410091382685**

Q.14 'अल्पज्ञ' का विलोम शब्द होगा –

Ans
✔ 1. सर्वज्ञ
✘ 2. अज्ञ
✘ 3. अज्ञेय
✘ 4. अवज्ञेय

Question ID : **441009354099**
Option 1 ID : **4410091382638**
Option 2 ID : **4410091382637**
Option 3 ID : **4410091382639**
Option 4 ID : **4410091382636**

QuickSarkari.com | WhatsApp Channel | Telegram: t.me/quick_sarkari

Quick Sarkari

Thank you for studying with QuickSarkari!

Get the latest Sarkari Naukri notifications, admit cards, results, answer keys and free previous-year papers first - follow us on WhatsApp and Telegram.

Visit www.quicksarkari.com

Join our WhatsApp Channel

https://whatsapp.com/channel/0029VaxxbrREquiPoXTWM229

Join our Telegram Channel

https://t.me/quick_sarkari

Share this PDF with your friends preparing for DSSSB exams.