DSSSB PREVIOUS YEAR PAPER WITH ANSWER KEY

DSSSB Laboratory Attendant

7 August 2025 · Shift 2

डीएसएसएसबी प्रयोगशाला परिचारक – 7 अगस्त 2025, शिफ्ट 2 का प्रश्न पत्र, उत्तर कुंजी सहित

200	120 min	1 / −0.25	EN + HI
Questions / प्रश्न	Duration / समय	Marks per Q / अंक	Language / भाषा

Sections: General intelligence and Reasoning Ability, General Awareness, Arithmetical and Numerical Ability, English Language and Comprehension, Hindi Language and Comprehension

INSIDE THIS PDF / इस PDF में

Question Paper in English + Hindi with Answer Key (correct option marked in green) + answer table — Page 2–49
प्रश्न पत्र अंग्रेज़ी + हिंदी में, उत्तर कुंजी सहित (सही विकल्प हरे रंग में) + उत्तर तालिका

Official DSSSB Response Sheet with Answer Key (correct option ticked in green) — Page 50–114
आधिकारिक DSSSB रिस्पॉन्स शीट, उत्तर कुंजी सहित (सही विकल्प हरे टिक से)

HOW TO USE THIS PAPER / इस पेपर का उपयोग कैसे करें

1. Attempt the paper first as a timed online mock test (link below).
   पहले नीचे दिए लिंक से इसे टाइमर के साथ ऑनलाइन मॉक टेस्ट के रूप में हल करें।
2. Check your score, section-wise analysis and solutions online.
   ऑनलाइन अपना स्कोर, खंड-वार विश्लेषण और हल देखें।
3. Use this PDF for revision. Correct answers are shown in green.
   दोहराने के लिए इस PDF का उपयोग करें। सही उत्तर हरे रंग में दिए गए हैं।

Attempt this paper as a FREE online mock test

इस पेपर को फ्री ऑनलाइन मॉक टेस्ट के रूप में हल करें – टाइमर, स्कोर और हल के साथ

https://quicksarkari.com/dsssb-laboratory-attendant-07-august-2025-shift-2-mock-test/

All DSSSB Laboratory Attendant papers and mock tests: **quicksarkari.com/dsssb-mock-test/#laboratory-attendant**

Join WhatsApp Channel | Join Telegram Channel

DSSSB Laboratory Attendant – Question Paper (English + Hindi)

DSSSB प्रयोगशाला परिचारक – प्रश्न पत्र (अंग्रेज़ी + हिंदी)

Exam held on 7 August 2025, Shift 2 · 200 questions · correct answers marked ✔ in green
परीक्षा तिथि 7 अगस्त 2025, शिफ्ट 2 · 200 प्रश्न · सही उत्तर हरे रंग में ✔ से चिह्नित

> The official paper for this shift was in English. The Hindi version of each question is a translation prepared by QuickSarkari; the language-section questions are shown as asked.
> इस शिफ्ट का आधिकारिक प्रश्न पत्र अंग्रेज़ी में था। प्रत्येक प्रश्न का हिंदी संस्करण QuickSarkari द्वारा तैयार किया गया अनुवाद है; भाषा खंड के प्रश्न मूल रूप में दिए गए हैं।

General intelligence and Reasoning Ability

Q.1 Each of A, B, C, D, E and F lives on a different floor of a six-storey building. The bottommost floor of the building is numbered as 1; the floor above it is numbered as 2 and so on. The topmost floor is numbered as 6. C lives on an odd-numbered floor but not on floor number 3. Only three people live between F and C. E lives immediately below D. D lives on an odd- numbered floor. A does not live on the topmost floor. A lives on one of the floors below C. On which floor does A live?

A, B, C, D, E और F में से प्रत्येक एक छह मंजिला इमारत की एक अलग-अलग मंजिल पर रहता है। इमारत की सबसे निचली मंजिल की संख्या 1 है; उसके ऊपर वाली मंजिल की संख्या 2 है और इसी प्रकार आगे भी। सबसे ऊपरी मंजिल की संख्या 6 है। C एक विषम संख्या वाली मंजिल पर रहता है, लेकिन मंजिल संख्या 3 पर नहीं।
F और C के बीच केवल तीन व्यक्ति रहते हैं। E, D के ठीक नीचे रहता है। D एक विषम संख्या वाली मंजिल पर रहता है। A सबसे ऊपरी मंजिल पर नहीं रहता है। A, C से नीचे की मंजिलों में से किसी एक पर रहता है। A किस मंजिल पर रहता है?

(1) Floor number 2 / मंजिल संख्या 2
(2) Floor number 3 / मंजिल संख्या 3
(3) Floor number 4 / मंजिल संख्या 4 ✔
(4) Floor number 5 / मंजिल संख्या 5

Q.2 In a certain code language, 'pen paper' is coded as 'kp gk' and 'paper is white' is coded as 'hw gk bj'. How is 'paper' coded in the given language?

एक निश्चित कूट भाषा में, 'pen paper' को 'kp gk' के रूप में कूटबद्ध किया जाता है और 'paper is white' को 'hw gk bj' के रूप में कूटबद्ध किया जाता है। दी गई भाषा में 'paper' को किस प्रकार कूटबद्ध किया जाता है?

(1) kp
(2) hw
(3) gk ✔
(4) bj

Q.3 A, B, C, D, E and F are sitting around a circular table, facing the centre. A sits second to the left of D. D sits third to the left of F. B is an immediate neighbour of A. C sits second to the right of B. The position(s) of how many persons will remain unchanged if all persons are arranged in alphabetical order in anticlockwise direction, starting from A?

A, B, C, D, E और F एक वृत्ताकार मेज के परितः केंद्र की ओर मुख करके बैठे हैं। A, D के बाईं ओर दूसरे स्थान पर बैठा है। D, F के बाईं ओर तीसरे स्थान पर बैठा है। B, A का निकटतम पड़ोसी है। C, B के दाईं ओर दूसरे स्थान पर बैठा है। यदि सभी व्यक्तियों को A से शुरू करते हुए वामावर्त दिशा में वर्णानुक्रम में व्यवस्थित किया जाए, तो कितने व्यक्तियों का/के स्थान अपरिवर्तित रहेगा/रहेंगे?

(1) Two / दो
(2) Three / तीन
(3) Four / चार ✔
(4) One / एक

Q.4 Each of P, L, K, G, F, U and T travelled on a different day of a week, starting from Monday and ending on Sunday of the same week.
P travelled on Friday. Only three people travelled between G and P. K travelled immediately after L, but not on the last day of the week. U travelled immediately before P. T travelled immediately before F.
How many people travelled between K and F?

P, L, K, G, F, U और T में से प्रत्येक ने एक ही सप्ताह के सोमवार से शुरू होकर रविवार को समाप्त होने वाले सप्ताह के एक अलग-अलग दिन यात्रा की।
P ने शुक्रवार को यात्रा की। G और P के बीच केवल तीन व्यक्तियों ने यात्रा की। K ने L के ठीक बाद यात्रा की, लेकिन सप्ताह के अंतिम दिन नहीं। U ने P के ठीक पहले यात्रा की। T ने F के ठीक पहले यात्रा की।
K और F के बीच कितने व्यक्तियों ने यात्रा की?

(1) Two / दो
(2) One / एक
(3) **Three / तीन ✔**
(4) Four / चार

Q.5 Each of A, V, N, X, P, E and R celebrates their birthday on a different day of a week, starting from Monday and ending on Sunday of the same week.
Only three people celebrate their birthday between X and A. P celebrates their birthday immediately before X. Only one person celebrates their birthday after A. R celebrates their birthday on one of the days before V but not on Thursday. E celebrates their birthday immediately before V.
On which day does V celebrate their birthday?

A, V, N, X, P, E और R में से प्रत्येक एक ही सप्ताह के सोमवार से शुरू होकर रविवार को समाप्त होने वाले सप्ताह के एक अलग-अलग दिन अपना जन्मदिन मनाता है।
X और A के बीच केवल तीन व्यक्ति अपना जन्मदिन मनाते हैं। P, X के ठीक पहले अपना जन्मदिन मनाता है। A के बाद केवल एक व्यक्ति अपना जन्मदिन मनाता है। R, V से पहले वाले दिनों में से किसी एक दिन अपना जन्मदिन मनाता है, लेकिन गुरुवार को नहीं। E, V के ठीक पहले अपना जन्मदिन मनाता है।
V किस दिन अपना जन्मदिन मनाता है?

(1) **Friday / शुक्रवार ✔**
(2) Sunday / रविवार
(3) Wednesday / बुधवार
(4) Monday / सोमवार

Q.6 In a row of certain persons, Mr. XYZ is sitting 222nd from the right end and 111th from the left end. Find out the total number of persons in that row.

कुछ व्यक्तियों की एक पंक्ति में, श्री XYZ दाएं छोर से 222वें और बाएं छोर से 111वें स्थान पर बैठे हैं। उस पंक्ति में व्यक्तियों की कुल संख्या ज्ञात कीजिए।

(1) 334
(2) 330
(3) **332 ✔**
(4) 333

Q.7 CG35 is related to IM70 in a certain way. In the same way, OS105 is related to UY140. To which of the given options is FJ80 related, following the same logic?

CG35 एक निश्चित प्रकार से IM70 से संबंधित है। उसी प्रकार, OS105, UY140 से संबंधित है। समान तर्क का अनुसरण करते हुए, FJ80 दिए गए विकल्पों में से किससे संबंधित है?

(1) LP125

(2) LP115 ✔

(3) LO115

(4) MP115

Q.8 The position of how many letters will remain unchanged if each of the letters in the word WORTHY is arranged in the English alphabetical order?

यदि शब्द WORTHY के प्रत्येक अक्षर को अंग्रेजी वर्णमाला क्रम में व्यवस्थित किया जाए, तो कितने अक्षरों का स्थान अपरिवर्तित रहेगा?

(1) Four / चार ✔

(2) One / एक

(3) Three / तीन

(4) Two / दो

Q.9 In a certain code language, 'BUGS' is coded as '4268' and 'GIVE' is coded as '5932'. What is the code for 'G' in that language?

एक निश्चित कूट भाषा में, 'BUGS' को '4268' के रूप में कूटबद्ध किया जाता है और 'GIVE' को '5932' के रूप में कूटबद्ध किया जाता है। उस भाषा में 'G' के लिए कूट क्या है?

(1) 6

(2) 5

(3) 2 ✔

(4) 9

Q.10 HNUS is related to KPXU in a certain way based on the English alphabetical order. In the same way, MBJI is related to PDMK. To which of the given options is DVHL related, following the same logic?

अंग्रेजी वर्णमाला क्रम के आधार पर HNUS एक निश्चित प्रकार से KPXU से संबंधित है। उसी प्रकार, MBJI, PDMK से संबंधित है। समान तर्क का अनुसरण करते हुए, DVHL दिए गए विकल्पों में से किससे संबंधित है?

(1) GXKN ✔

(2) HULN

(3) HYJL

(4) IWKM

Q.11 Y is the daughter of L. I is the brother of the father of Y. L is the wife of K. B is the mother of K. J is the wife of I. How is B related to J?

Y, L की पुत्री है। I, Y के पिता का भाई है। L, K की पत्नी है। B, K की माता है। J, I की पत्नी है। B का J से क्या संबंध है?

(1) Husband's sister / पति की बहन

(2) Mother / माता

(3) Son's wife / पुत्र की पत्नी

(4) Husband's mother / पति की माता ✔

Q.12 The position(s) of how many letters will remain unchanged if each of the letters in the word VIRTUAL is arranged in the English alphabetical order?

यदि शब्द VIRTUAL के प्रत्येक अक्षर को अंग्रेजी वर्णमाला क्रम में व्यवस्थित किया जाए, तो कितने अक्षरों का/के स्थान अपरिवर्तित रहेगा/रहेंगे?

(1) Three / तीन

(2) None / किसी का नहीं

(3) Two / दो

(4) One / एक ✔

Q.13 Each of the letters in the word COMPUTER is arranged as per the English alphabetical order. How many letters are there in the English alphabetical order between the letter that is third from the left and the one that is third from the right in the new letter cluster thus formed?

शब्द COMPUTER के प्रत्येक अक्षर को अंग्रेजी वर्णमाला क्रम के अनुसार व्यवस्थित किया जाता है।

इस प्रकार बने नए अक्षर-समूह में बाएं से तीसरे अक्षर और दाएं से तीसरे अक्षर के बीच अंग्रेजी वर्णमाला क्रम में कितने अक्षर हैं?

(1) Four / चार ✔

(2) One / एक

(3) Two / दो

(4) Three / तीन

Q.14 Refer to the given number and symbol series and answer the question that follows. Counting to be done from left to right only.

(Left) 3 1 7 7 5 1 @ # # 3 2 # 1 # (Right)

How many symbols are immediately followed by a number and also immediately preceded by a number?

दी गई संख्या और प्रतीक श्रृंखला को देखें और उसके बाद दिए गए प्रश्न का उत्तर दें। गिनती केवल बाएं से दाएं की जानी है।

(बाएं) 3 1 7 7 5 1 @ # # 3 2 # 1 # (दाएं)

कितने प्रतीक ऐसे हैं जिनके ठीक बाद एक संख्या है और ठीक पहले भी एक संख्या है?

(1) One / एक ✔

(2) Four / चार

(3) Two / दो

(4) Three / तीन

Q.15 In a certain code language, 'M & N' means 'M is the mother of N', 'M @ N' means 'M is the brother of N', 'M $ N' means 'M is the father of N' and 'M # N' means 'M is the son of N'.

How is K related to G if 'G $ H & I @ J # K'?

एक निश्चित कूट भाषा में, 'M & N' का अर्थ है 'M, N की माता है', 'M @ N' का अर्थ है 'M, N का भाई है', 'M $ N' का अर्थ है 'M, N का पिता है' और 'M # N' का अर्थ है 'M, N का पुत्र है'।

यदि 'G $ H & I @ J # K' है, तो K का G से क्या संबंध है?

(1) Daughter's husband / पुत्री का पति ✔

(2) Father / पिता

(3) Son / पुत्र

(4) Brother / भाई

Q.16 Five people, U, V, W, X and Y, are sitting around a circular table facing the centre. V sits to the immediate left of X, and Y sits to the immediate right of W. W is not an immediate neighbour of X. What is the position of Y with respect to X?

पाँच व्यक्ति, U, V, W, X और Y, एक वृत्ताकार मेज के परितः केंद्र की ओर मुख करके बैठे हैं। V, X के ठीक बाईं ओर बैठा है, और Y, W के ठीक दाईं ओर बैठा है। W, X का निकटतम पड़ोसी नहीं है। X के सापेक्ष Y का स्थान क्या है?

(1) Second to the right / दाईं ओर दूसरा

(2) Second to the left / बाईं ओर दूसरा ✔

(3) Immediate left / ठीक बाईं ओर

(4) Immediate right / ठीक दाईं ओर

Q.17 In the following triads, each group of letters is related to the subsequent one following a certain logic. Select from the given options, the one which follows the same logic. SEAT - TSEA - ATSE MAZE - EMAZ - ZEMA

निम्नलिखित त्रिकों में, अक्षरों का प्रत्येक समूह एक निश्चित तर्क का अनुसरण करते हुए अगले समूह से संबंधित है। दिए गए विकल्पों में से उस विकल्प का चयन करें जो समान तर्क का अनुसरण करता है।

SEAT - TSEA - ATSE MAZE - EMAZ - ZEMA

(1) RAMP - ARPM - MARP

(2) RAMP - PRAM - MPAR

(3) RAMP - PRAM - MPRA ✔

(4) RAMP - PRMA - APRM

Q.18 Each vowel in the word DEFINITION is changed to the letter immediately following it in the English alphabetical order and each consonant is changed to the letter immediately preceding it in the English alphabetical order. Which of the following letters will appear exactly twice in the new group of letters thus formed?

शब्द DEFINITION में प्रत्येक स्वर को अंग्रेजी वर्णमाला क्रम में उसके ठीक बाद वाले अक्षर में बदल दिया जाता है और प्रत्येक व्यंजन को अंग्रेजी वर्णमाला क्रम में उसके ठीक पहले वाले अक्षर में बदल दिया जाता है। इस प्रकार बने अक्षरों के नए समूह में निम्नलिखित में से कौन-सा अक्षर ठीक दो बार आएगा?

(1) S

(2) P

(3) M ✔

(4) J

Q.19 In a certain code language, 'YOUR' is coded as '4268' and 'UNIT' is coded as '5932'. What is the code for 'U' in the given code language?

एक निश्चित कूट भाषा में, 'YOUR' को '4268' के रूप में कूटबद्ध किया जाता है और 'UNIT' को '5932' के रूप में कूटबद्ध किया जाता है। दी गई कूट भाषा में 'U' के लिए कूट क्या है?

(1) 5

(2) 6

(3) 3

(4) 2 ✔

Q.20 If each vowel in the word LOVELY is changed to the next letter in the English alphabetical series and each consonant is changed to the previous letter in the English alphabetical series, which of the following will be fourth from the left?

यदि शब्द LOVELY के प्रत्येक स्वर को अंग्रेजी वर्णमाला श्रृंखला में उसके अगले अक्षर में बदल दिया जाए और प्रत्येक व्यंजन को अंग्रेजी वर्णमाला श्रृंखला में उसके पिछले अक्षर में बदल दिया जाए, तो निम्नलिखित में से कौन-सा अक्षर बाएं से चौथा होगा?

(1) W
(2) E
(3) F ✔
(4) D

Q.21 Select the correct mirror image of the given combination when the mirror is placed at 'MN' as shown below.

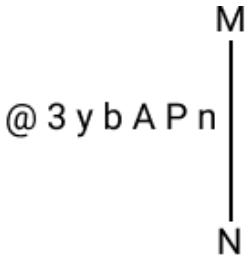

जब दर्पण को नीचे दर्शाए अनुसार 'MN' पर रखा जाता है, तो दिए गए संयोजन के सही दर्पण प्रतिबिंब का चयन करें।

(1) ∩ P ∀ d γ Ɛ ⓐ
(2) ∩ ꟻ A d γ 3 ⓐ
(3) ∩ ꟻ A d γ Ɛ ⓐ ✔
(4) ∩ ꟻ A d γ Ɛ @

Q.22 Each of the digits in the number 6913254785438 is arranged in descending order from left to right. What will be the sum of the digits which are third from the left and third from the right in the new number thus formed?

संख्या 6913254785438 के प्रत्येक अंक को बाएं से दाएं अवरोही क्रम में व्यवस्थित किया जाता है। इस प्रकार बनी नई संख्या में बाएं से तीसरे और दाएं से तीसरे अंकों का योग क्या होगा?

(1) 8
(2) 13
(3) 10
(4) 11 ✔

Q.23 Read the given statements and conclusions carefully. Assuming that the information given in the statements is true, even if it appears to be at variance with commonly known facts, decide which of the given conclusion(s) logically follow(s) from the statements.
Statements:
Some lions are pins.
No pin is a clove.
Conclusions:
(I) Some lions are cloves.
(II) Some pins are lions.
दिए गए कथनों और निष्कर्षों को ध्यानपूर्वक पढ़ें। यह मानते हुए कि कथनों में दी गई जानकारी सत्य है, भले ही वह सामान्यतः ज्ञात तथ्यों से भिन्न प्रतीत होती हो, निर्णय लें कि दिए गए निष्कर्षों में से कौन-सा/से निष्कर्ष कथनों का तार्किक रूप से अनुसरण करता है/करते हैं।
कथन:
कुछ शेर, पिन हैं।
कोई पिन, लौंग नहीं है।
निष्कर्ष:
(I) कुछ शेर, लौंग हैं।
(II) कुछ पिन, शेर हैं।

(1) Both conclusions (I) and (II) follow / निष्कर्ष (I) और (II) दोनों अनुसरण करते हैं
(2) Neither conclusion (I) nor (II) follows / न तो निष्कर्ष (I) और न ही (II) अनुसरण करता है
(3) Only conclusion (I) follows / केवल निष्कर्ष (I) अनुसरण करता है
(4) Only conclusion (II) follows / केवल निष्कर्ष (II) अनुसरण करता है ✔

Q.24 Select the number from among the given options that will replace the question mark (?) in the given series.
45, 50, 47, 52, 49, 54, ?
दिए गए विकल्पों में से उस संख्या का चयन करें जो दी गई श्रृंखला में प्रश्न चिह्न (?) के स्थान पर आएगी।
45, 50, 47, 52, 49, 54, ?

(1) 56
(2) 51 ✔
(3) 55
(4) 52

Q.25 Based on the English alphabetical order, three of the following four letter-cluster pairs are alike in a certain way and thus form a group. Which letter-cluster pair DOES NOT belong to that group?
(Note: The odd one out is not based on the number of consonants/vowels or their position in the letter-cluster.)
अंग्रेजी वर्णमाला क्रम के आधार पर, निम्नलिखित चार अक्षर-समूह युग्मों में से तीन किसी निश्चित प्रकार से एक समान हैं और इस प्रकार एक समूह बनाते हैं। कौन-सा अक्षर-समूह युग्म उस समूह से संबंधित नहीं है?
(ध्यान दें: असंगत अक्षर-समूह, उस अक्षर-समूह में व्यंजनों/स्वरों की संख्या या उनके स्थान पर आधारित नहीं है।)

(1) PF - RH
(2) GP - IR
(3) DG - FI
(4) IT - JV ✔

Q.26 If '+' means '÷', '–' means '×', '×' means '–' and '÷' means '+', what will come in place of the question mark (?) in the following equation?
211 ÷ 149 × 420 + 35 – 23 = ?
यदि '+' का अर्थ '÷' है, '–' का अर्थ '×' है, '×' का अर्थ '–' है और '÷' का अर्थ '+' है, तो निम्नलिखित समीकरण में प्रश्न चिह्न (?) के स्थान पर क्या आएगा?
211 ÷ 149 × 420 + 35 – 23 = ?

(1) 96
(2) 88
(3) 92
(4) 84 ✔

Q.27 Read the given statements and conclusions carefully. Assuming that the information given in the statements is true, even if it appears to be at variance with commonly known facts, decide which of the given conclusion(s) logically follow(s) from the statements.
Statements:
All buns are grinders.
All grinders are poles.
Conclusions:
(I) Some poles are grinders.
(II) All buns are poles.
दिए गए कथनों और निष्कर्षों को ध्यानपूर्वक पढ़ें। यह मानते हुए कि कथनों में दी गई जानकारी सत्य है, भले ही वह सामान्यतः ज्ञात तथ्यों से भिन्न प्रतीत होती हो, निर्णय लें कि दिए गए निष्कर्षों में से कौन-सा/से निष्कर्ष कथनों का तार्किक रूप से अनुसरण करता है/करते हैं।
कथन:
सभी बन, ग्राइंडर हैं।
सभी ग्राइंडर, पोल हैं।
निष्कर्ष:
(I) कुछ पोल, ग्राइंडर हैं।
(II) सभी बन, पोल हैं।

(1) Both conclusions (I) and (II) follow / निष्कर्ष (I) और (II) दोनों अनुसरण करते हैं ✔
(2) Neither conclusion (I) nor (II) follows / न तो निष्कर्ष (I) और न ही (II) अनुसरण करता है
(3) Only conclusion (I) follows / केवल निष्कर्ष (I) अनुसरण करता है
(4) Only conclusion (II) follows / केवल निष्कर्ष (II) अनुसरण करता है

Q.28 Which two numbers should be interchanged to make the following equation correct? 54 − 3 × 5 + (64 ÷ 8) + (7 × 4) + 12 × 2 = 195 (Note: The entire number should be interchanged and not individual digits of a given number.)
निम्नलिखित समीकरण को सही बनाने के लिए किन दो संख्याओं को आपस में बदला जाना चाहिए?
54 − 3 × 5 + (64 ÷ 8) + (7 × 4) + 12 × 2 = 195 (ध्यान दें: पूरी संख्या को आपस में बदला जाना चाहिए, न कि दी गई संख्या के अलग-अलग अंकों को।)

(1) 5 and 2 / 5 और 2
(2) 8 and 2 / 8 और 2 ✔
(3) 4 and 2 / 4 और 2
(4) 4 and 3 / 4 और 3

Q.29 Select the correct mirror image of the given combination when the mirror is placed at 'MN' as shown below.

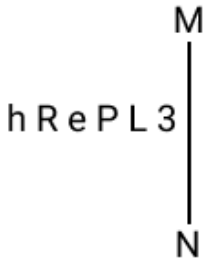

जब दर्पण को नीचे दर्शाए अनुसार 'MN' पर रखा जाता है, तो दिए गए संयोजन के सही दर्पण प्रतिबिंब का चयन करें।

(1) 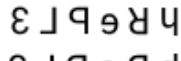

(2) 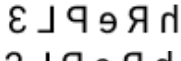 ✔

(3) 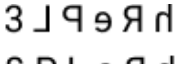

(4) 

Q.30 In the following number pairs, the second number is obtained by applying certain mathematical operations to the first number. Which numbers should replace X and Y so that the pattern followed by the two numbers on the left side of :: is same as that on the right side of ::?
(Note: Operations should be performed on the whole numbers, without breaking down the numbers into their constituent digits. E.g., 13 – Operations on 13 such as adding/subtracting/multiplying to 13 can be performed. Breaking down 13 into 1 and 3 and then performing mathematical operations on 1 and 3 is not allowed.)
X : 900 :: 10 : Y

निम्नलिखित संख्या-युग्मों में, पहली संख्या पर कुछ गणितीय संक्रियाएँ करके दूसरी संख्या प्राप्त की जाती है। X और Y के स्थान पर कौन-सी संख्याएँ आनी चाहिए ताकि :: के बाईं ओर की दो संख्याओं द्वारा अनुसरित पैटर्न वही हो जो :: के दाईं ओर की दो संख्याओं द्वारा अनुसरित है?
(ध्यान दें: संख्याओं को उनके घटक अंकों में विभाजित किए बिना, पूर्ण संख्याओं पर संक्रियाएँ की जानी चाहिए। उदाहरण के लिए, 13 – 13 पर संक्रियाएँ जैसे 13 में जोड़ना/घटाना/गुणा करना आदि की जा सकती हैं। 13 को 1 और 3 में विभाजित करना और फिर 1 और 3 पर गणितीय संक्रियाएँ करना वर्जित है।)
X : 900 :: 10 : Y

(1) **X = 30, Y = 100 ✔**

(2) X = 33, Y = 99

(3) X = 30, Y = 98

(4) X = 35, Y = 100

Q.31 Each of the digits in the number 75968413 is arranged in the descending order from left to right. The position(s) of how many digits will remain unchanged as compared to that in the original number?

संख्या 75968413 के प्रत्येक अंक को बाएं से दाएं अवरोही क्रम में व्यवस्थित किया जाता है। मूल संख्या की तुलना में कितने अंकों का/के स्थान अपरिवर्तित रहेगा/रहेंगे?

(1) Four / चार

(2) One / एक

(3) Three / तीन

(4) **Two / दो ✔**

Q.32 If '+' means '÷', '–' means '×', '×' means '–', and '÷' means '+', then what will come in place of the question mark (?) in the following equation?
210 × 425 + 17 – 4 ÷ 130 = ?
यदि '+' का अर्थ '÷' है, '–' का अर्थ '×' है, '×' का अर्थ '–' है, और '÷' का अर्थ '+' है, तो निम्नलिखित समीकरण में प्रश्न चिह्न (?) के स्थान पर क्या आएगा?
210 × 425 + 17 – 4 ÷ 130 = ?

(1) 240 ✔
(2) 200
(3) 210
(4) 250

Q.33 In the following series, only one letter-cluster is incorrect. Select the INCORRECT letter- cluster.
VTS, RPO, LJI, HGE
निम्नलिखित श्रृंखला में, केवल एक अक्षर-समूह गलत है। गलत अक्षर-समूह का चयन करें।
VTS, RPO, LJI, HGE

(1) VTS
(2) LJI
(3) HGE ✔
(4) RPO

Q.34 A statement is given followed by two conclusions. Identify which of the given conclusions is/are true based on the given statement.
Statement:
J = N ≤ P > Q ≥ T
Conclusions:
1. N ≤ Q
2. J < P
एक कथन और उसके बाद दो निष्कर्ष दिए गए हैं। दिए गए कथन के आधार पर पहचानें कि दिए गए निष्कर्षों में से कौन-सा/से सत्य है/हैं।
कथन:
J = N ≤ P > Q ≥ T
निष्कर्ष:
1. N ≤ Q
2. J < P

(1) Neither conclusion 1 nor 2 is true. / न तो निष्कर्ष 1 और न ही 2 सत्य है। ✔
(2) Only conclusion 1 is true. / केवल निष्कर्ष 1 सत्य है।
(3) Only conclusion 2 is true. / केवल निष्कर्ष 2 सत्य है।
(4) Both conclusions 1 and 2 are true. / निष्कर्ष 1 और 2 दोनों सत्य हैं।

Q.35 Which of the given numbers will replace the question mark (?) in the following series? 128, 133, 136, 141, 144, 149, ?
निम्नलिखित श्रृंखला में प्रश्न चिह्न (?) के स्थान पर दी गई संख्याओं में से कौन-सी संख्या आएगी?
128, 133, 136, 141, 144, 149, ?

(1) 155
(2) 153
(3) 157
(4) 152 ✔

Q.36 Based on the English alphabetical order, three of the following four letter-cluster pairs are alike in a certain way and thus form a group. Which letter-cluster pair DOES NOT belong to that group?
(Note: The odd man out is not based on the number of consonants/vowels or their position in the letter cluster.)
अंग्रेजी वर्णमाला क्रम के आधार पर, निम्नलिखित चार अक्षर-समूह युग्मों में से तीन किसी निश्चित प्रकार से एक समान हैं और इस प्रकार एक समूह बनाते हैं। कौन-सा अक्षर-समूह युग्म उस समूह से संबंधित नहीं है?
(ध्यान दें: असंगत अक्षर-समूह, उस अक्षर-समूह में व्यंजनों/स्वरों की संख्या या उनके स्थान पर आधारित नहीं है।)

(1) EH-YB
(2) BE-VY
(3) **QW-CI ✔**
(4) LO-FI

Q.37 In the following number-pairs, the second number is obtained by performing certain mathematical operation(s) on the first number. Which numbers should replace X and Y, so that the pattern followed by the two numbers on the left side of :: is the same as that on the right side of ::?
(NOTE: Operations should be performed on the whole numbers, without breaking down the numbers into their constituent digits. E.g. 13 – Operations on 13 such as adding/subtracting/multiplying to 13 can be performed. Breaking down 13 into 1 and 3 and then performing mathematical operations on 1 and 3 is not allowed.)
X : 38 :: 9 : Y
निम्नलिखित संख्या-युग्मों में, पहली संख्या पर कुछ गणितीय संक्रिया/संक्रियाएँ करके दूसरी संख्या प्राप्त की जाती है। X और Y के स्थान पर कौन-सी संख्याएँ आनी चाहिए ताकि :: के बाईं ओर की दो संख्याओं द्वारा अनुसरित पैटर्न वही हो जो :: के दाईं ओर की दो संख्याओं द्वारा अनुसरित है?
(ध्यान दें: संख्याओं को उनके घटक अंकों में विभाजित किए बिना, पूर्ण संख्याओं पर संक्रियाएँ की जानी चाहिए। उदाहरण के लिए, 13 – 13 पर संक्रियाएँ जैसे 13 में जोड़ना/घटाना/गुणा करना आदि की जा सकती हैं। 13 को 1 और 3 में विभाजित करना और फिर 1 और 3 पर गणितीय संक्रियाएँ करना वर्जित है।)
X : 38 :: 9 : Y

(1) **X = 6, Y = 83 ✔**
(2) X = 6, Y = 81
(3) X = 7, Y = 83
(4) X = 4, Y = 82

Q.38 Two statements are given followed by two conclusions. Identify which of the given conclusions is/are true based on the following statement.
Statements:
= @, α = β, @ < $, # > α
Conclusions:
I. @ > β
II. α < @
दो कथन और उसके बाद दो निष्कर्ष दिए गए हैं। निम्नलिखित कथन के आधार पर पहचानें कि दिए गए निष्कर्षों में से कौन-सा/से सत्य है/हैं।
कथन:
= @, α = β, @ < $, # > α
निष्कर्ष:
I. @ > β
II. α < @

(1) Both statements I and II are true. / कथन I और II दोनों सत्य हैं। ✔
(2) Only statement I is true. / केवल कथन I सत्य है।
(3) Only statement II is true. / केवल कथन II सत्य है।
(4) Neither statement I nor II is true. / न तो कथन I और न ही II सत्य है।

Q.39 In the following number pairs, the second number is obtained by applying certain mathematical operations to the first number. Which numbers should replace X and Y so that the pattern followed by the two numbers on the left side of :: is same as that on the right side of ::?
(Note: Operations should be performed on the whole numbers, without breaking down the numbers into their constituent digits. E.g., 13 – Operations on 13 such as adding/subtracting/multiplying to 13 can be performed. Breaking down 13 into 1 and 3 and then performing mathematical operations on 1 and 3 is not allowed.)
X : 105 :: 21 : Y
निम्नलिखित संख्या-युग्मों में, पहली संख्या पर कुछ गणितीय संक्रियाएँ करके दूसरी संख्या प्राप्त की जाती है। X और Y के स्थान पर कौन-सी संख्याएँ आनी चाहिए ताकि :: के बाईं ओर की दो संख्याओं द्वारा अनुसरित पैटर्न वही हो जो :: के दाईं ओर की दो संख्याओं द्वारा अनुसरित है?
(ध्यान दें: संख्याओं को उनके घटक अंकों में विभाजित किए बिना, पूर्ण संख्याओं पर संक्रियाएँ की जानी चाहिए। उदाहरण के लिए, 13 – 13 पर संक्रियाएँ जैसे 13 में जोड़ना/घटाना/गुणा करना आदि की जा सकती हैं। 13 को 1 और 3 में विभाजित करना और फिर 1 और 3 पर गणितीय संक्रियाएँ करना वर्जित है।)
X : 105 :: 21 : Y

(1) X = 15, Y = 155
(2) X = 15, Y = 147 ✔
(3) X = 18, Y = 147
(4) X = 17, Y = 147

Q.40 Select the number from among the given options that can replace the question mark (?) in the following series.
18, 41, 66, 93, ?
दिए गए विकल्पों में से उस संख्या का चयन करें जो निम्नलिखित श्रृंखला में प्रश्न चिह्न (?) का स्थान ले सकती है।
18, 41, 66, 93, ?

(1) 122 ✔
(2) 123
(3) 121
(4) 120

General Awareness

Q.41 Which of the following is the primary objective of the Pradhan Mantri Gati Shakti Plan?

प्रधानमंत्री गति शक्ति योजना का प्राथमिक उद्देश्य निम्नलिखित में से कौन-सा है?

(1) To promote digital literacy across rural areas / ग्रामीण क्षेत्रों में डिजिटल साक्षरता को बढ़ावा देना

(2) To provide direct financial assistance to small-scale industries / लघु उद्योगों को प्रत्यक्ष वित्तीय सहायता प्रदान करना

(3) **To enhance multimodal connectivity and improve infrastructure efficiency / मल्टीमॉडल कनेक्टिविटी को बढ़ाना और अवसंरचना दक्षता में सुधार करना ✔**

(4) To develop housing for the urban poor / शहरी गरीबों के लिए आवास विकसित करना

Q.42 In the 1820s, the students of which teacher attacked tradition and custom, demanded education for women, and campaigned for freedom of thought and expression?

1820 के दशक में किस शिक्षक के छात्रों ने परंपरा और रीति-रिवाजों पर हमला किया, महिलाओं के लिए शिक्षा की मांग की, तथा विचार और अभिव्यक्ति की स्वतंत्रता के लिए अभियान चलाया?

(1) **Henry Louis Vivian Derozio / हेनरी लुई विवियन डिरोजिओ (Henry Louis Vivian Derozio) ✔**

(2) Richard Wellesley / रिचर्ड वेलेस्ली (Richard Wellesley)

(3) James Jonathan / जेम्स जोनाथन (James Jonathan)

(4) Thomas Macauley / थॉमस मैकाले (Thomas Macauley)

Q.43 India secured which position in the overall medal standings at the Asian Athletics Championships 2025 held in Gumi, Republic of Korea?

कोरिया गणराज्य के गुमी में आयोजित एशियाई एथलेटिक्स चैंपियनशिप 2025 में समग्र पदक तालिका में भारत ने कौन-सा स्थान प्राप्त किया?

(1) **Second / दूसरा ✔**

(2) First / पहला

(3) Fourth / चौथा

(4) Third / तीसरा

Q.44 What is the name of the global initiative launched by the Morarji Desai National Institute of Yoga (MDNIY) to celebrate international unity and wellness through yoga on the occasion of International Day of Yoga 2025?

अंतर्राष्ट्रीय योग दिवस 2025 के अवसर पर योग के माध्यम से अंतर्राष्ट्रीय एकता और स्वास्थ्य का उत्सव मनाने के लिए मोरारजी देसाई राष्ट्रीय योग संस्थान (MDNIY) द्वारा शुरू की गई वैश्विक पहल का नाम क्या है?

(1) Global Yoga Collaboration / ग्लोबल योग कोलैबोरेशन

(2) **Yoga Bandhan / योग बंधन ✔**

(3) Yoga Connect / योग कनेक्ट

(4) Yoga for Unity / योग फॉर यूनिटी

Q.45 Which sector in India is the largest employer of labour?

भारत में कौन-सा क्षेत्र श्रम का सबसे बड़ा नियोक्ता है?

(1) Healthcare / स्वास्थ्य सेवा

(2) **Agriculture / कृषि ✔**

(3) Manufacturing / विनिर्माण

(4) Information Technology (IT) / सूचना प्रौद्योगिकी (IT)

Q.46 Which asteroid was named after the Indian scientist Prof. Jayant Murthy by the International Astronomical Union (IAU) on 18 March 2024?

अंतर्राष्ट्रीय खगोलीय संघ (IAU) द्वारा 18 मार्च 2024 को किस क्षुद्रग्रह का नाम भारतीय वैज्ञानिक प्रो. जयंत मूर्ति के नाम पर रखा गया?

(1) 2000 LJ27
(2) 2009 CD4
(3) 2006 VP32
(4) **2005 EX296 ✔**

Q.47 In which of the following years was the All-India Muslim League formed?

अखिल भारतीय मुस्लिम लीग का गठन निम्नलिखित में से किस वर्ष में हुआ था?

(1) 1905
(2) 1919
(3) 1927
(4) **1906 ✔**

Q.48 India's U-19 football team won the SAFF U-19 Championship 2025 by defeating which country in the penalty shootout?

भारत की U-19 फुटबॉल टीम ने पेनल्टी शूटआउट में किस देश को हराकर SAFF U-19 चैंपियनशिप 2025 जीती?

(1) Sri Lanka / श्रीलंका
(2) **Bangladesh / बांग्लादेश ✔**
(3) Nepal / नेपाल
(4) Pakistan / पाकिस्तान

Q.49 Which of the following platforms was launched by Union Minister Piyush Goyal at the Bharat Climate Forum 2025 in New Delhi?

नई दिल्ली में भारत क्लाइमेट फोरम 2025 में केंद्रीय मंत्री पीयूष गोयल द्वारा निम्नलिखित में से कौन-सा प्लेटफॉर्म लॉन्च किया गया?

(1) Bima Sugam / बीमा सुगम
(2) **Bharat Cleantech Manufacturing Platform / भारत क्लीनटेक मैन्युफैक्चरिंग प्लेटफॉर्म ✔**
(3) Intra Circle Roaming (ICR) / इंट्रा सर्कल रोमिंग (ICR)
(4) Sanchar Saathi Mobile App / संचार साथी मोबाइल ऐप

Q.50 Where is 'Humayun's Tomb' located in India?

भारत में 'हुमायूँ का मकबरा' कहाँ स्थित है?

(1) Mumbai / मुंबई
(2) Agra / आगरा
(3) **Delhi / दिल्ली ✔**
(4) Jaipur / जयपुर

Q.51 Who among the following was the founder of the Indian National Congress?

निम्नलिखित में से कौन भारतीय राष्ट्रीय कांग्रेस के संस्थापक थे?

(1) **AO Hume / ए.ओ. ह्यूम ✔**
(2) Jawaharlal Nehru / जवाहरलाल नेहरू
(3) Sardar Patel / सरदार पटेल
(4) Mahatma Gandhi / महात्मा गांधी

Q.52 Where is the famous Mukteswara temple located in India?

प्रसिद्ध मुक्तेश्वर मंदिर भारत में कहाँ स्थित है?

(1) Bhubaneswar / भुवनेश्वर ✔

(2) Vijayawada / विजयवाड़ा

(3) Warangal / वारंगल

(4) Kanchipuram / कांचीपुरम

Q.53 Which Indian physicist from the University of Manchester received the 2024 Blavatnik Prize for developing novel membranes based on two-dimensional (2D) materials?

मैनचेस्टर विश्वविद्यालय के किस भारतीय भौतिक विज्ञानी को द्वि-आयामी (2D) पदार्थों पर आधारित नवीन झिल्लियाँ विकसित करने के लिए 2024 का ब्लावाटनिक पुरस्कार मिला?

(1) Ashoke Sen / अशोक सेन

(2) Sandip Chakrabarti / संदीप चक्रवर्ती

(3) Rahul R Nair / राहुल आर. नायर ✔

(4) Tanmay Bharat / तन्मय भरत

Q.54 In 2025, President Droupadi Murmu appointed which of the following judges as the Chief Justice of the Manipur High Court under Article 217(1) of the Constitution?

2025 में, राष्ट्रपति द्रौपदी मुर्मू ने संविधान के अनुच्छेद 217(1) के तहत निम्नलिखित में से किस न्यायाधीश को मणिपुर उच्च न्यायालय का मुख्य न्यायाधीश नियुक्त किया?

(1) Justice Kempaiah Somashekar / न्यायमूर्ति केम्पैया सोमशेखर ✔

(2) Justice Akil Kureshi / न्यायमूर्ति अकील कुरैशी

(3) Justice KS Jhaveri / न्यायमूर्ति के.एस. झावेरी

(4) Justice Rakesh Kumar / न्यायमूर्ति राकेश कुमार

Q.55 Which Government Scheme aims to provide employment opportunities to rural households in India?

कौन-सी सरकारी योजना का उद्देश्य भारत में ग्रामीण परिवारों को रोजगार के अवसर प्रदान करना है?

(1) National Rural Health Mission (NRHM) / राष्ट्रीय ग्रामीण स्वास्थ्य मिशन (NRHM)

(2) Make in India / मेक इन इंडिया

(3) Mahatma Gandhi National Rural Employment Guarantee Act (MGNREGA) / महात्मा गांधी राष्ट्रीय ग्रामीण रोजगार गारंटी अधिनियम (MGNREGA) ✔

(4) Swachh Bharat Abhiyan / स्वच्छ भारत अभियान

Q.56 Which type of cost represents the additional cost incurred by producing one more unit of output?

किस प्रकार की लागत, उत्पादन की एक अतिरिक्त इकाई का उत्पादन करने में होने वाली अतिरिक्त लागत को दर्शाती है?

(1) Total cost / कुल लागत

(2) Average cost / औसत लागत

(3) Variable cost / परिवर्ती लागत

(4) Marginal cost / सीमांत लागत ✔

Q.57 On which date every year is the sacrifice of Rani Laxmibai of Jhansi remembered?
झांसी की रानी लक्ष्मीबाई के बलिदान को प्रतिवर्ष किस तिथि को याद किया जाता है?

(1) 10th March / 10 मार्च
(2) 19th August / 19 अगस्त
(3) 31st October / 31 अक्टूबर
(4) **18th June / 18 जून ✔**

Q.58 Which of the following is an example of a fixed cost in production?
उत्पादन में नियत लागत का उदाहरण निम्नलिखित में से क्या है?

(1) **Factory rent / कारखाने का किराया ✔**
(2) Raw material / कच्चा माल
(3) Electricity bills / बिजली के बिल
(4) Labour wages / श्रम मजदूरी

Q.59 Which team was declared 'National Team of the Year' at the Sportstar Aces Awards in February 2025?
फरवरी 2025 में स्पोर्टस्टार एसेस अवॉर्ड्स में किस टीम को 'नेशनल टीम ऑफ द ईयर' घोषित किया गया?

(1) Indian Men's Hockey Team / भारतीय पुरुष हॉकी टीम
(2) **Indian Men's and Women's Chess Teams / भारतीय पुरुष और महिला शतरंज टीमें ✔**
(3) Indian Kabaddi Team / भारतीय कबड्डी टीम
(4) Indian Men's Cricket Team / भारतीय पुरुष क्रिकेट टीम

Q.60 What adjustment is made to convert Gross Domestic Product at Market Prices into Gross Domestic Product at Factor Cost?
बाजार मूल्य पर सकल घरेलू उत्पाद को साधन लागत पर सकल घरेलू उत्पाद में परिवर्तित करने के लिए क्या समायोजन किया जाता है?

(1) **Subtract Net Indirect Taxes and add subsidies. / शुद्ध अप्रत्यक्ष कर घटाएँ और सब्सिडी जोड़ें। ✔**
(2) Subtract Personal Income Tax. / व्यक्तिगत आयकर घटाएँ।
(3) Add Net Factor Income from Abroad. / विदेश से शुद्ध साधन आय जोड़ें।
(4) Add Consumption of Fixed Capital. / स्थिर पूंजी का उपभोग जोड़ें।

Q.61 Who among the following founded the Tattvabodhini Sabha in 1839?
निम्नलिखित में से किसने 1839 में तत्त्वबोधिनी सभा की स्थापना की?

(1) Raja Ram Mohan Roy / राजा राम मोहन राय
(2) Ishwar Chandra Vidyasagar / ईश्वर चंद्र विद्यासागर
(3) **Debendranath Tagore / देवेंद्रनाथ टैगोर ✔**
(4) Radhakanta Deb / राधाकांत देब

Q.62 With reference to Pongal, which of the given statements is/are correct?
a) Pongal is the harvest festival.
b) Pongal is also the name of a dish.
पोंगल के संदर्भ में, दिए गए कथनों में से कौन-सा/से सही है/हैं?
a) पोंगल फसल का त्योहार है।
b) पोंगल एक व्यंजन का नाम भी है।

(1) Only b / केवल b
(2) **Both a and b / a और b दोनों ✔**
(3) Only a / केवल a
(4) Neither a nor b / न तो a और न ही b

Q.63 Which of the following is NOT a writ given in Article 32 of the Indian Constitution?
निम्नलिखित में से कौन-सी रिट भारतीय संविधान के अनुच्छेद 32 में नहीं दी गई है?

(1) Quo warranto / अधिकार पृच्छा
(2) Certiorari / उत्प्रेषण
(3) Prohibition / प्रतिषेध
(4) **Injunction / निषेधाज्ञा ✔**

Q.64 Who appoints the Chief Justice of India?
भारत के मुख्य न्यायाधीश की नियुक्ति कौन करता है?

(1) **The President of India / भारत के राष्ट्रपति ✔**
(2) The Parliament / संसद
(3) The Lok Sabha Speaker / लोकसभा अध्यक्ष
(4) The Prime Minister / प्रधानमंत्री

Q.65 In which state does the Rabha community celebrate the 'Baikho' festival for a good harvest?
किस राज्य में राभा समुदाय अच्छी फसल के लिए 'बैखो' त्योहार मनाता है?

(1) Odisha / ओडिशा
(2) Jharkhand / झारखंड
(3) Haryana / हरियाणा
(4) **Assam / असम ✔**

Q.66 Which of the following is NOT a salient feature of the Constitution of India?
निम्नलिखित में से कौन-सी भारत के संविधान की प्रमुख विशेषता नहीं है?

(1) Parliamentary form of government / संसदीय शासन प्रणाली
(2) **Separation of powers with rigid checks and balance / कठोर नियंत्रण और संतुलन के साथ शक्तियों का पृथक्करण ✔**
(3) Fundamental Rights / मौलिक अधिकार
(4) Directive Principles of State Policy / राज्य के नीति निदेशक सिद्धांत

Q.67 In the presence of which of the following solutions does onion paste lose its smell and become completely odourless?
निम्नलिखित में से किस विलयन की उपस्थिति में प्याज का पेस्ट अपनी गंध खो देता है और पूरी तरह से गंधहीन हो जाता है?

(1) NaOH ✔
(2) HBr
(3) H_2SO_4
(4) $CaCO_3$

Q.68 What is the primary function of sprouting pulses before consumption?
उपभोग से पहले दालों को अंकुरित करने का प्राथमिक कार्य (primary function) क्या है?

(1) To improve digestibility and increase nutritional value / पाच्यता में सुधार और पोषण मान में वृद्धि करना ✔
(2) To increase shelf life for long-term use / दीर्घकालिक उपयोग के लिए शेल्फ लाइफ में वृद्धि करना
(3) To reduce the calorie content of pulses to make a balanced diet / संतुलित आहार बनाने के लिए दालों की कैलोरी मात्रा को कम करना
(4) To completely eliminate all anti-nutritional factors / सभी पोषणज-विरोधी कारकों को पूरी तरह से समाप्त करना

Q.69 'Khajuraho Dance Festival' is hosted in which of the following districts of Madhya Pradesh?
'खजुराहो नृत्य महोत्सव' मध्य प्रदेश के निम्नलिखित में से किस जिले में आयोजित किया जाता है?

(1) Jabalpur / जबलपुर
(2) Rajgarh / राजगढ़
(3) Indore / इंदौर
(4) Chhatarpur / छतरपुर ✔

Q.70 The flexibility of the plasma membrane is because it is made up of _____.
प्लाज्मा झिल्ली का लचीलापन इस कारण है कि यह _____ से बनी होती है।

(1) monosaccharides and ions / मोनोसैकराइड और आयनों
(2) polysaccharides and monosaccharides / पॉलीसैकराइड और मोनोसैकराइड
(3) proteins and lipids / प्रोटीन और लिपिड ✔
(4) cellulose / सेल्यूलोज

Q.71 Which of the following crops is grown in the Rabi season in North India?
उत्तर भारत में रबी के मौसम में निम्नलिखित में से कौन-सी फसल उगाई जाती है?

(1) Wheat / गेहूँ ✔
(2) Jute / जूट
(3) Groundnut / मूंगफली
(4) Cotton / कपास

Q.72 Which of the following is a feature of the 'Fundamental Rights'?
निम्नलिखित में से कौन-सी 'मौलिक अधिकारों' की एक विशेषता है?

(1) Non-justifiable / गैर-न्यायोचित
(2) Justifiable / न्यायोचित ✔
(3) Rigid / कठोर
(4) Flexible / लचीले

Q.73 The river that marks the easternmost boundary of the Himalayas is the _____ river.
हिमालय की सबसे पूर्वी सीमा का निर्धारण करने वाली नदी, _____ नदी है।

(1) Ganga / गंगा
(2) Kali / काली
(3) **Brahmaputra / ब्रह्मपुत्र ✔**
(4) Ghaghara / घाघरा

Q.74 Pick the ODD one out with respect to primary meristem.
प्राथमिक विभज्योतक के संदर्भ में विषम का चयन करें।

(1) Interfascicular cambium / अंतरपूलीय एधा
(2) Cylindrical meristem / बेलनाकार विभज्योतक
(3) Lateral meristem / पार्श्व विभज्योतक
(4) **Intercalary meristem / अंतर्वेशी विभज्योतक ✔**

Q.75 Geographically, the Terai region is known for _____.
तराई क्षेत्र, भौगोलिक दृष्टि से _____ के लिए जाना जाता है।

(1) **its fertile soil and intensive agriculture / अपनी उर्वर मृदा और गहन कृषि ✔**
(2) its dense forests and diverse wildlife / अपने घने वनों और विविध वन्यजीव
(3) its high altitude and mountainous terrain / अपनी उच्च ऊंचाई और पर्वतीय भू-भाग
(4) its arid climate and sparse vegetation / अपनी शुष्क जलवायु और विरल वनस्पति

Q.76 With reference to 'slash and burn' agriculture in India, which of the following pairs is incorrect?
भारत में 'कर्तन दहन प्रणाली (slash and burn)' कृषि के संदर्भ में, निम्नलिखित में से कौन-सा युग्म गलत है?

(1) Madhya Pradesh - Bewar or Dahiya / मध्य प्रदेश - बेवर या दहिया
(2) **Rajasthan - Khil or Kuruwa / राजस्थान - खिल या कुरुवा ✔**
(3) Odisha - Koman or Bringa / ओडिशा - कोमान या ब्रिंगा
(4) Andhra Pradesh - Podu or Penda / आंध्र प्रदेश - पोडू या पेंदा

Q.77 Which of the following festivals is celebrated thrice in a year to mark the three important stages of agricultural operation in the state of Assam?
असम राज्य में कृषि कार्य के तीन महत्वपूर्ण चरणों को चिह्नित करने के लिए निम्नलिखित में से कौन-सा त्योहार वर्ष में तीन बार मनाया जाता है?

(1) **Bihu / बिहू ✔**
(2) Pongal / पोंगल
(3) Bheldiya / भेलदिया
(4) Doljtra / डोलजात्रा

Q.78 As per Census 2011, which of the following cities has the highest literacy rate in India?
जनगणना 2011 के अनुसार, निम्नलिखित में से किस शहर की साक्षरता दर भारत में सबसे अधिक है?

(1) Thrissur / त्रिशूर
(2) **Aizawl / आइजोल ✔**
(3) Kochi / कोच्चि
(4) Kozhikode / कोझिकोड

Q.79 Which of the following is the causative agent of tuberculosis?

निम्नलिखित में से कौन क्षय रोग (तपेदिक) का कारक जीव है?

(1) Staphylococcus tuberculosis / स्टैफिलोकोकस ट्यूबरकुलोसिस

(2) **Mycobacterium tuberculosis / माइकोबैक्टीरियम ट्यूबरकुलोसिस ✔**

(3) Pseudomonas aeruginosa / स्यूडोमोनास एरुगिनोसा

(4) Streptococcus pyogenes / स्ट्रेप्टोकोकस पायोजेन्स

Q.80 Who has the right to summon and prorogue the State Legislature?

राज्य विधानमंडल को आहूत करने और उसका सत्रावसान करने का अधिकार किसे है?

(1) Chief Justice of High Court / उच्च न्यायालय के मुख्य न्यायाधीश

(2) President of India / भारत के राष्ट्रपति

(3) Chief Minister / मुख्यमंत्री

(4) **Governor / राज्यपाल ✔**

Arithmetical and Numerical Ability

Q.81 What is the minimum value that must be assigned to A so that the 8-digit number 535A6708 is divisible by 3?

A को कम से कम कितना मान दिया जाना चाहिए ताकि 8 अंकों की संख्या 535A6708, 3 से विभाज्य हो?

(1) 3

(2) 1

(3) **2 ✔**

(4) 4

Q.82 Convert $2.1\overline{142857}$ into a fraction.

$2.1\overline{142857}$ को भिन्न में बदलिए।

(1) **74/35 ✔**

(2) 73/35

(3) 15/7

(4) 72/35

Q.83 The average weight of a family of five members (in kg) whose weights are 40 kg, 49 kg, 56 kg, 64 kg and 39 kg is:

पाँच सदस्यों वाले एक परिवार, जिनके भार 40 kg, 49 kg, 56 kg, 64 kg और 39 kg हैं, का औसत भार (kg में) कितना है?

(1) 50.6

(2) **49.6 ✔**

(3) 51.6

(4) 48.6

Q.84 A vendor sold 10 chocolates for ₹1, making a profit of 90%. How many chocolates did he buy for ₹1?

एक विक्रेता ने ₹1 में 10 चॉकलेट बेचकर 90% का लाभ अर्जित किया। उसने ₹1 में कितनी चॉकलेट खरीदी थीं?

(1) 25

(2) 23

(3) 21

(4) **19 ✔**

Q.85 A vendor sold 10 chocolates for ₹1, making a profit of 100%. How many chocolates did he buy for ₹1?

एक विक्रेता ने ₹1 में 10 चॉकलेट बेचकर 100% का लाभ अर्जित किया। उसने ₹1 में कितनी चॉकलेट खरीदी थीं?

(1) 20 ✔

(2) 22

(3) 26

(4) 24

Q.86 A person borrowed ₹15,000 on simple interest and paid interest of ₹6,300 after 3 years. Find the rate of interest per annum.

एक व्यक्ति ने साधारण ब्याज पर ₹15,000 उधार लिए और 3 वर्ष बाद ₹6,300 ब्याज का भुगतान किया। वार्षिक ब्याज दर ज्ञात कीजिए।

(1) 15%

(2) 14% ✔

(3) 13%

(4) 12%

Q.87 David's salary is ₹10,000 per month. He spends ₹5,500 on house rent, ₹3,000 on bills and the rest of the amount is his monthly savings. Find his savings(in ₹) in a year, if in the month of his birthday he spent his complete monthly savings for his birthday celebration.

डेविड का वेतन ₹10,000 प्रति माह है। वह ₹5,500 मकान किराए पर, ₹3,000 बिलों पर खर्च करता है और शेष राशि उसकी मासिक बचत है। यदि अपने जन्मदिन वाले महीने में उसने अपनी पूरी मासिक बचत अपने जन्मदिन के उत्सव पर खर्च कर दी, तो एक वर्ष में उसकी बचत (₹ में) ज्ञात कीजिए।

(1) 13,500

(2) 18,000

(3) 16,500 ✔

(4) 15,000

Q.88 Find the compound interest on ₹4,800 at the rate of 5% per annum for two years, compounded annually.

₹4,800 पर 5% वार्षिक दर से दो वर्ष के लिए, वार्षिक रूप से संयोजित होने वाला चक्रवृद्धि ब्याज ज्ञात कीजिए।

(1) ₹472

(2) ₹424

(3) ₹429

(4) ₹492 ✔

Q.89 The average weight of a family of five members (in kg) whose weights are 40 kg, 49 kg, 56 kg, 64 kg and 37 kg is:

पाँच सदस्यों वाले एक परिवार, जिनके भार 40 kg, 49 kg, 56 kg, 64 kg और 37 kg हैं, का औसत भार (kg में) कितना है?

(1) 51.2

(2) 50.2

(3) 48.2

(4) 49.2 ✔

Q.90 A sum of money doubles itself at compound interest in 10 years, compounded annually. In how many years will it become four times, if the interest is compounded annually?

वार्षिक रूप से संयोजित होने वाले चक्रवृद्धि ब्याज पर कोई धनराशि 10 वर्ष में स्वयं की दोगुनी हो जाती है। यदि ब्याज वार्षिक रूप से संयोजित होता है, तो यह कितने वर्षों में चार गुनी हो जाएगी?

(1) 15

(2) **20** ✔

(3) 30

(4) 25

Q.91 By how much is 60% of 45 more than 1/5 of 15?

45 का 60%, 15 के 1/5 से कितना अधिक है?

(1) 18

(2) 22

(3) 21

(4) **24** ✔

Q.92 The average (rounded off to two decimal place) of the squares of the first 27 natural numbers is:

प्रथम 27 प्राकृत संख्याओं के वर्गों का औसत (दो दशमलव स्थानों तक पूर्णांकित) कितना है?

(1) 258.67

(2) 257.67

(3) **256.67** ✔

(4) 255.67

Q.93 Study the given table and answer the question that follows.

The given table shows the number of the headphones that were sold by the showrooms P, Q, R and S from 2017 to 2022.

Year P Q R S 2017 184 143 189 270 2018 270 184 195 220 2019 210 200 220 200 2020 280 300 280 320 2021 270 240 300 350 2022 360 280 340 380 What was the average number of headphones sold per showroom in the year 2020?

दी गई तालिका का अध्ययन करें और उसके बाद दिए गए प्रश्न का उत्तर दें।

दी गई तालिका 2017 से 2022 तक शोरूम P, Q, R और S द्वारा बेचे गए हेडफ़ोन की संख्या दर्शाती है।

वर्ष P Q R S 2017 184 143 189 270 2018 270 184 195 220 2019 210 200 220 200 2020 280 300 280 320 2021 270 240 300 350 2022 360 280 340 380 वर्ष 2020 में प्रति शोरूम बेचे गए हेडफ़ोन की औसत संख्या कितनी थी?

(1) **295** ✔

(2) 258

(3) 205

(4) 228

Q.94 Amit's income in 2019 was ₹22,000. He gets an increment of 10% every year. What was his income (in ₹) in 2021?

वर्ष 2019 में अमित की आय ₹22,000 थी। उसे प्रति वर्ष 10% की वेतन वृद्धि मिलती है। वर्ष 2021 में उसकी आय (₹ में) कितनी थी?

(1) 24,200

(2) **26,620** ✔

(3) 26,400

(4) 22,000

Q.95 The number of prime numbers lying between 457 and 469, both inclusive, is:

457 और 469 के बीच (दोनों को शामिल करते हुए) स्थित अभाज्य संख्याओं की संख्या कितनी है?

(1) 1

(2) **4** ✔

(3) 5

(4) 6

Q.96 Sam invested a certain amount of money which doubled itself in 8 years at simple interest. How many years will it take for the money to become five times at the same rate of simple interest.

सैम ने कुछ धनराशि निवेश की जो साधारण ब्याज पर 8 वर्षों में स्वयं की दोगुनी हो गई।

साधारण ब्याज की समान दर पर धनराशि को पाँच गुना होने में कितने वर्ष लगेंगे?

(1) 35

(2) 30

(3) **32** ✔

(4) 28

Q.97 1550 people visited an exhibition on Tuesday, whereas 1860 people visited it on Wednesday. The percentage increase in the number of people visiting the exhibition on Wednesday over those who visited it on Tuesday was _____%.

मंगलवार को 1550 लोगों ने एक प्रदर्शनी देखी, जबकि बुधवार को 1860 लोगों ने इसे देखा।

मंगलवार को प्रदर्शनी देखने वालों की तुलना में बुधवार को प्रदर्शनी देखने वाले लोगों की संख्या में प्रतिशत वृद्धि _____% थी।

(1) 21

(2) **20** ✔

(3) 17.67

(4) 16.67

Quick Sarkari

Q.98 The given table shows the total number of students studying in various colleges (A, B, C and D) over six years from 2018 to 2023. Study the table and answer the question that follows.

Year	College			
	A	B	C	D
2018	325	410	210	320
2019	270	380	260	340
2020	420	440	310	410
2021	360	260	250	260
2022	275	350	340	360
2023	350	360	230	310

If the ratio of the total number of boys and the total number of girls who studied in College B during these six years is given as 2 : 3, and the same ratio for College D is given as 3 : 2, what is the ratio of the total number of boys who studied in College B during these six years to the total number of girls who studied in College D during the same period?

दी गई तालिका छह वर्षों में 2018 से 2023 तक विभिन्न कॉलेजों (A, B, C और D) में पढ़ने वाले छात्रों की कुल संख्या दर्शाती है। तालिका का अध्ययन करें और उसके बाद दिए गए प्रश्न का उत्तर दें।

यदि इन छह वर्षों के दौरान कॉलेज B में पढ़ने वाले लड़कों की कुल संख्या और लड़कियों की कुल संख्या का अनुपात 2 : 3 दिया गया है, और कॉलेज D के लिए यही अनुपात 3 : 2 दिया गया है, तो इन छह वर्षों के दौरान कॉलेज B में पढ़ने वाले लड़कों की कुल संख्या और इसी अवधि के दौरान कॉलेज D में पढ़ने वाली लड़कियों की कुल संख्या का अनुपात क्या है?

(1) 12 : 13
(2) 11 : 12
(3) 10 : 11
(4) **11 : 10** ✔

Q.99 Simplify the given expression.

[(2 × 3 + 7) ÷ 4]

दिए गए व्यंजक को सरल कीजिए।

[(2 × 3 + 7) ÷ 4]

(1) 2.93
(2) **3.25** ✔
(3) 4.15
(4) 2.17

Q.100 The average of the squares of the first 26 natural numbers is:

प्रथम 26 प्राकृत संख्याओं के वर्गों का औसत कितना है?

(1) 239.5
(2) 237.5
(3) 240.5
(4) **238.5** ✔

Q.101 A person covers a certain distance in 4 hours at a speed of 6 km/hr, and then covers another distance in 10 hours at a speed of 2 km/hr. Find his average speed (in km/hr) for the entire journey.

एक व्यक्ति 6 km/hr की चाल से 4 घंटे में एक निश्चित दूरी तय करता है, और फिर 2 km/hr की चाल से 10 घंटे में एक अन्य दूरी तय करता है। पूरी यात्रा के लिए उसकी औसत चाल (km/hr में) ज्ञात कीजिए।

(1) 3 1/7 ✔

(2) 4 1/7

(3) 5 1/7

(4) 2 1/7

Q.102 P, Q and R enter into a partnership and their shares are in the ratio 1/4 : 1/5 : 1/6. After 3 months, Q withdraws one-fourth of his capital and after another 9 months, a profit of ₹2,085 is divided among them. What is Q's share (in ₹) in the profit?

P, Q और R एक साझेदारी में प्रवेश करते हैं और उनके हिस्से 1/4 : 1/5 : 1/6 के अनुपात में हैं। 3 महीने बाद, Q अपनी पूंजी का एक-चौथाई भाग निकाल लेता है और अगले 9 महीने बाद, ₹2,085 का लाभ उनके बीच बाँटा जाता है। लाभ में Q का हिस्सा (₹ में) कितना है?

(1) 585 ✔

(2) 739

(3) 615

(4) 676

Q.103 The cost price of 30 articles is the same as the selling price of n articles. If the profit is 25%, then find the value of n.

30 वस्तुओं का क्रय मूल्य n वस्तुओं के विक्रय मूल्य के बराबर है। यदि लाभ 25% है, तो n का मान ज्ञात कीजिए।

(1) 20

(2) 24 ✔

(3) 16

(4) 19

Q.104 If the curved surface area of a cone is 4070 cm^2 and its diameter is 70 cm, then its slant height is (use π = 22/7):

यदि एक शंकु का वक्र पृष्ठीय क्षेत्रफल 4070 cm^2 है और इसका व्यास 70 cm है, तो इसकी तिर्यक ऊँचाई कितनी है (π = 22/7 का प्रयोग करें):

(1) 37 cm ✔

(2) 54 cm

(3) 27 cm

(4) 47 cm

Q.105 A contractor has to construct a park in 90 days. He initially employs 60 men. After 30 days, he realises that only one-fifth of the work has been completed. How many more men should he employ to complete the remaining work on time?

एक ठेकेदार को 90 दिनों में एक पार्क का निर्माण करना है। वह आरंभ में 60 पुरुषों को नियुक्त करता है। 30 दिनों के बाद, उसे पता चलता है कि केवल एक-पाँचवाँ कार्य पूरा हुआ है। शेष कार्य को समय पर पूरा करने के लिए उसे और कितने पुरुषों को नियुक्त करना चाहिए?

(1) 120

(2) 60 ✔

(3) 75

(4) 90

Q.106 Find the mean proportional of 18 and 128?

18 और 128 का मध्यानुपाती ज्ञात कीजिए?

(1) 45

(2) 46

(3) 47

(4) 48 ✔

Q.107 If 21 , 63 , 81 , and y are in proportion, then the value of y is:

यदि 21 , 63 , 81 , और y समानुपात में हैं, तो y का मान है:

(1) 238

(2) 240

(3) 246

(4) 243 ✔

Q.108 Ribha, Ranu and Rupa can independently complete a piece of work in 6 hours, 12 hours and 18 hours, respectively. If they work together, how much time will they take to complete that piece of work?

रिभा, रानू और रूपा स्वतंत्र रूप से किसी काम को क्रमशः 6 घंटे, 12 घंटे और 18 घंटे में पूरा कर सकती हैं। यदि वे एक साथ काम करें, तो उस काम को पूरा करने में उन्हें कितना समय लगेगा?

(1) 3 3/11 hours / 3 3/11 घंटे ✔

(2) 3 2/11 hours / 3 2/11 घंटे

(3) 3 1/11 hours / 3 1/11 घंटे

(4) 3 4/11 hours / 3 4/11 घंटे

Q.109 The speed of a car increases by 5 kms after every one hour. If the distance travelled in the first one hour was 42 kms, what was the total distance travelled in 10 hours?

एक कार की चाल प्रत्येक एक घंटे के बाद 5 km बढ़ जाती है। यदि पहले एक घंटे में तय की गई दूरी 42 km थी, तो 10 घंटों में तय की गई कुल दूरी कितनी थी?

(1) 645 km ✔

(2) 638 km

(3) 637 km

(4) 642 km

Q.110 The distance between two points on a map is 9 cm. The scale of the map is 1 : 678739. The actual distance (in km, rounded off to two decimal places) between the two points is:

एक मानचित्र पर दो बिंदुओं के बीच की दूरी 9 cm है। मानचित्र का पैमाना 1 : 678739 है। दोनों बिंदुओं के बीच की वास्तविक दूरी (km में, दो दशमलव स्थानों तक पूर्णांकित) कितनी है?

(1) 62.25

(2) 56.88

(3) 61.09 ✔

(4) 64.81

Q.111 The marked price of an article is 50% more than its cost price. The article is sold for ₹1,200 after offering a discount of 20% on the marked price. Find the marked price of the article.

एक वस्तु का अंकित मूल्य उसके क्रय मूल्य से 50% अधिक है। अंकित मूल्य पर 20% की छूट देने के बाद वस्तु को ₹1,200 में बेचा जाता है। वस्तु का अंकित मूल्य ज्ञात कीजिए।

(1) ₹1,400

(2) ₹1,600

(3) ₹2,000

(4) ₹1,500 ✔

Q.112 If the lateral surface area of a cylinder is 112.4 cm^2 and its height is 32 cm, then find its volume. (Use π = 3.14 and round off to two decimal places.)

यदि एक बेलन का पार्श्व पृष्ठीय क्षेत्रफल 112.4 cm^2 है और इसकी ऊँचाई 32 cm है, तो इसका आयतन ज्ञात कीजिए। (π = 3.14 का प्रयोग करें और दो दशमलव स्थानों तक पूर्णांकित करें।)

(1) 41.56 cm^3

(2) 31.43 cm^3 ✔

(3) 74.15 cm^3

(4) 20.06 cm^3

Q.113 The surface area of a sphere is 64 π cm^2. The volume (cm^3) of the sphere is:

एक गोले का पृष्ठीय क्षेत्रफल 64 π cm^2 है। गोले का आयतन (cm^3 में) कितना है?

(1) 274π/3

(2) 256π/3 ✔

(3) 338π/3

(4) 275π/3

Q.114 It takes Pipes A and B working together 4 minutes to fill a tank. If Pipe A takes 6 minutes less than Pipe B to fill the tank individually, find the time Pipe B alone would take to fill the tank.

पाइप A और B एक साथ कार्य करते हुए एक टंकी को भरने में 4 मिनट लेते हैं। यदि पाइप A अकेले टंकी को भरने में पाइप B से 6 मिनट कम समय लेता है, तो पाइप B द्वारा अकेले टंकी को भरने में लिया गया समय ज्ञात कीजिए।

(1) 11 minutes / 11 मिनट

(2) 12 minutes / 12 मिनट ✔

(3) 14 minutes / 14 मिनट

(4) 10 minutes / 10 मिनट

Q.115 A tap can fill a tank in 10 hours. After two-fifths of the tank is filled, three more identical taps are opened. What is the total time (in hours) taken to fill the tank completely?

एक नल एक टंकी को 10 घंटे में भर सकता है। टंकी का दो-पाँचवाँ भाग भर जाने के बाद, तीन और समान नल खोल दिए जाते हैं। टंकी को पूरी तरह भरने में लगा कुल समय (घंटों में) कितना है?

(1) 5.5 ✔

(2) 5

(3) 4.5

(4) 4

Q.116 When the selling price of a guitar is ₹19,000, the shopkeeper incurs a loss of 5%. What should be the selling price (in ₹) of that guitar so as to gain 25%?

जब एक गिटार का विक्रय मूल्य ₹19,000 है, तो दुकानदार को 5% की हानि होती है। 25% लाभ प्राप्त करने के लिए उस गिटार का विक्रय मूल्य (₹ में) कितना होना चाहिए?

(1) ₹21,475

(2) ₹25,000 ✔

(3) ₹20,000

(4) ₹21,575

Q.117 A rectangular water tank is 10 m high, 8 m long and 5 m wide. How many litres of water can it hold?

एक आयताकार पानी की टंकी 10 m ऊँची, 8 m लंबी और 5 m चौड़ी है। इसमें कितने लीटर पानी आ सकता है?

(1) 400 litres / 400 लीटर

(2) 4,00,000 litres / 4,00,000 लीटर ✔

(3) 40,000 litres / 40,000 लीटर

(4) 4,000 litres / 4,000 लीटर

Q.118 Vijay buys mangoes at the rate of 3 kg for ₹15 and sells them at 5 kg for ₹50. To earn ₹180 as profit, how much quantity of mangoes (in kg) must he sell?

विजय ₹15 में 3 kg की दर से आम खरीदता है और ₹50 में 5 kg की दर से बेचता है। लाभ के रूप में ₹180 अर्जित करने के लिए उसे कितनी मात्रा में आम (kg में) बेचने होंगे?

(1) 38

(2) 39

(3) 37

(4) 36 ✔

Q.119 A truck travels 81 km at the speed of 51 km/hr and the next 48 km at the speed of 8 km/hr. What is its average speed (in km/hr)?

एक ट्रक 51 km/hr की चाल से 81 km और अगले 48 km, 8 km/hr की चाल से तय करता है।
इसकी औसत चाल (km/hr में) कितनी है?

(1) 23

(2) 17 ✔

(3) 21

(4) 11

Q.120 The speed of a car is 15 m/sec. The distance (in kilometres) travelled by the car in 3 hours and 50 minutes is:

एक कार की चाल 15 m/sec है। कार द्वारा 3 घंटे 50 मिनट में तय की गई दूरी (किलोमीटर में) कितनी है:

(1) 212

(2) 207 ✔

(3) 203

(4) 211

English Language and Comprehension

Q.121 Sentences of a paragraph are given below in jumbled order. Arrange the sentences in the correct order to form a meaningful and coherent paragraph.
(A) Through these records, future generations learn about ancient societies.
(B) Archaeologists carefully study old tools, pottery, and writings.
(C) These discoveries reveal details of daily life, trade, and beliefs.
(D) Without such evidence, much of human history would remain a mystery.

(1) CBDA
(2) DCBA
(3) BCAD ✔
(4) ABCD

Q.122 Parts of a sentence are given below in jumbled order. Arrange the parts in the correct order to form a meaningful sentence.
(P) who had been suffering from illness (Q) the mother took care of her son (R) and ensured he received proper treatment (S) with great love and dedication

(1) P - Q - R - S
(2) Q - P - S - R ✔
(3) R - S- P - Q
(4) S - Q - P - R

Q.123 Select the most appropriate option to fill in the blank.
The _____ architecture of the cathedral left the tourists in awe.

(1) most unique
(2) more unique
(3) unique ✔
(4) much more unique

Q.124 Identify the correct option to replace the highlighted text in the given sentence to make it grammatically correct.
He provided the most accurate explanation of the two.

(1) very accurate
(2) accurate
(3) much accurate
(4) more accurate ✔

Q.125 Select the most appropriate option that rectifies the grammatical error(s) in the given sentence.
His marks are more higher than mine this term.

(1) highest
(2) much high
(3) high
(4) higher ✔

Q.126 Select the option that rectifies the incorrect adverb usage in the following sentence. Adnan fortunately delivered his speech to the audience.

(1) Adnan silently delivered his speech to the audience.

(2) Adnan mysteriously delivered his speech to the audience.

(3) Adnan confidently delivered his speech to the audience. ✔

(4) Adnan generously delivered his speech to the audience.

Q.127 Select the most appropriate option to fill in the blank.
If he _____ a little more careful, he wouldn't have made that mistake.

(1) is

(2) has been

(3) had

(4) were ✔

Q.128 Select the most appropriate option to fill in the blank.
Marks will be deducted for a/an _____ answer.

(1) wrong ✔

(2) ineffective

(3) false

(4) negative

Q.129 Identify the correct option to replace the highlighted text in the given sentence to make it grammatically correct.
My house is more near to the market than yours.

(1) nearer ✔

(2) much near

(3) near

(4) nearest

Q.130 Select the most appropriate article to fill in the blank. If no article is needed, select 'No article required'.
I have to dedicate ____ ample amount of time to study complex mathematical concepts to excel in competitive exams.

(1) a

(2) No article required

(3) an ✔

(4) the

Q.131 Select the most appropriate option to fill in the blank.
A child holding _____ blue balloon ran cheerily across the playground.

(1) an

(2) No article required

(3) a ✔

(4) the

Q.132 Select the most appropriate option to fill in the blank.
The board of directors made a _____ decision that turned the company's fortunes around.

(1) much unanimous
(2) more unanimous
(3) **unanimous ✔**
(4) most unanimous

Q.133 Select the option that will improve the highlighted part of the given sentence.
We took the much shorter possible route to avoid delay.

(1) shorter
(2) very short
(3) most shortest
(4) **shortest ✔**

Q.134 The following sentence has been split into four segments. Identify the segment that contains a grammatical error.
They found / an interesting / article on / an internet.

(1) an interesting
(2) article on
(3) **an internet ✔**
(4) They found

Q.135 Select the most appropriate article to fill in the blank. If no article is needed, select 'No article required'.
A constricted path through the deep jungle led to _____ ancient shrine blanketed in mystery.

(1) a
(2) No article required
(3) the
(4) **an ✔**

Q.136

Read the given passage and answer the questions that follow.
During my stay at Ramanathapuram, my relationship with him grew beyond that of a teacher and pupil. In his company, I learnt that one could exercise enormous influence over the events of one's own life. Iyadurai Solomon used to say, "To succeed in life and achieve results, you must understand and master three mighty forces – desire, belief and expectation." Iyadurai Solomon, who later became a Reverend, taught me that before anything I wanted could happen, I had to desire it intensely and be absolutely certain it would happen. To take an example from my own life, I had been fascinated by the mysteries of the sky and the flight of birds from early childhood. I used to watch cranes and seagulls soar into fight and longed to fly. Simple provincial boy though I was, I was convinced that one day I, too, would soar up into the skies Indeed, I was the first child from Rameswaram to fly.

Who is Iyadurai Solomon to the narrator?

(1) Pupil
(2) **Teacher ✔**
(3) Uncle
(4) Friend

Q.137

Read the given passage and answer the questions that follow.
During my stay at Ramanathapuram, my relationship with him grew beyond that of a teacher and pupil. In his company, I learnt that one could exercise enormous influence over the events of one's own life. Iyadurai Solomon used to say, "To succeed in life and achieve results, you must understand and master three mighty forces – desire, belief and expectation." Iyadurai Solomon, who later became a Reverend, taught me that before anything I wanted could happen, I had to desire it intensely and be absolutely certain it would happen. To take an example from my own life, I had been fascinated by the mysteries of the sky and the flight of birds from early childhood. I used to watch cranes and seagulls soar into fight and longed to fly. Simple provincial boy though I was, I was convinced that one day I, too, would soar up into the skies Indeed, I was the first child from Rameswaram to fly.

The narrator was the first child from _____ to fly.

(1) Rameswaram ✔

(2) Chennai

(3) Coimbatore

(4) Kanyakumari

Q.138

Read the given passage and answer the questions that follow.
During my stay at Ramanathapuram, my relationship with him grew beyond that of a teacher and pupil. In his company, I learnt that one could exercise enormous influence over the events of one's own life. Iyadurai Solomon used to say, "To succeed in life and achieve results, you must understand and master three mighty forces – desire, belief and expectation." Iyadurai Solomon, who later became a Reverend, taught me that before anything I wanted could happen, I had to desire it intensely and be absolutely certain it would happen. To take an example from my own life, I had been fascinated by the mysteries of the sky and the flight of birds from early childhood. I used to watch cranes and seagulls soar into fight and longed to fly. Simple provincial boy though I was, I was convinced that one day I, too, would soar up into the skies Indeed, I was the first child from Rameswaram to fly.

Select the most suitable title for the passage.

(1) Strategies for Financial Investment

(2) Historical Events and Their Impacts

(3) A Philosophical Treatise on Human Emotions

(4) A Journey of Desire, Belief and Expectation ✔

QuickSarkari.com | WhatsApp Channel | Telegram: t.me/quick_sarkari

Q.139

Read the given passage and answer the questions that follow.
During my stay at Ramanathapuram, my relationship with him grew beyond that of a teacher and pupil. In his company, I learnt that one could exercise enormous influence over the events of one's own life. Iyadurai Solomon used to say, "To succeed in life and achieve results, you must understand and master three mighty forces – desire, belief and expectation." Iyadurai Solomon, who later became a Reverend, taught me that before anything I wanted could happen, I had to desire it intensely and be absolutely certain it would happen. To take an example from my own life, I had been fascinated by the mysteries of the sky and the flight of birds from early childhood. I used to watch cranes and seagulls soar into fight and longed to fly. Simple provincial boy though I was, I was convinced that one day I, too, would soar up into the skies Indeed, I was the first child from Rameswaram to fly.

Select the most appropriate ANTONYM of the word 'enormous' as given in the passage.

(1) Little ✔
(2) Grave
(3) Excessive
(4) Frivolous

Q.140

Read the given passage and answer the questions that follow.
During my stay at Ramanathapuram, my relationship with him grew beyond that of a teacher and pupil. In his company, I learnt that one could exercise enormous influence over the events of one's own life. Iyadurai Solomon used to say, "To succeed in life and achieve results, you must understand and master three mighty forces – desire, belief and expectation." Iyadurai Solomon, who later became a Reverend, taught me that before anything I wanted could happen, I had to desire it intensely and be absolutely certain it would happen. To take an example from my own life, I had been fascinated by the mysteries of the sky and the flight of birds from early childhood. I used to watch cranes and seagulls soar into fight and longed to fly. Simple provincial boy though I was, I was convinced that one day I, too, would soar up into the skies Indeed, I was the first child from Rameswaram to fly.

To succeed in life and achieve results, you must understand and master three mighty forces. What are the 'three forces' referred to in the passage?

(1) Desire, belief and fascination
(2) Desire, belief and expectation ✔
(3) Watch, exercise and expectation
(4) Desire, disbelief and expectation

Q.141 Select the option that can be used as a one-word substitute for the given phrase. Refusing to follow instructions or rules and not easy to control6781

(1) Pliable
(2) Recalcitrant ✔
(3) Malleable
(4) Acquiescent

Q.142 Select the most appropriate ANTONYM of the given word.
Laconic

(1) Terse
(2) Concise
(3) Loquacious ✔
(4) Diffusible

Q.143 Select the option that can be used as a one-word substitute for the given group of words. The statistical study of human population

(1) Holography
(2) Demography ✔
(3) Typography
(4) Geography

Q.144 Select the option that can be used as a one-word substitute for the given group of words. Unwilling or refusing to change one's views or to agree about something.

(1) Ineffable
(2) Inexorable
(3) Indefatigable
(4) Intransigent ✔

Q.145 Select the most appropriate meaning of the given proverb.
Cut your coat according to your cloth

(1) Live within your income ✔
(2) It is better to finish your work before you have a good time
(3) Confession marks the beginning of forgiveness
(4) Always take the easiest possible approach to do something

---

Q.146 Parts of a sentence are given below in jumbled order. Arrange the parts in the correct order to form a meaningful sentence.
A) source of light
B) than the land
C) under normal conditions
D) the sea is a brighter
E) during the night

(1) BAEDC
(2) ABCDE
(3) ECDAB ✔
(4) CEBAD

Q.147 Select the most appropriate meaning of the given expression.
Let the cat out of the bag

(1) Cause confusion
(2) Escape from a problem
(3) Reveal a secret unintentionally ✔
(4) Act without thinking

Q.148 Select the option that can be used as a one-word substitute for the given group of words. A person who does not believe in the existence of God227

(1) Sceptic

(2) Theist

(3) Atheist ✔

(4) Humanist

Q.149 Select the most appropriate ANTONYM of the given word.
Sluggish

(1) Juvenile

(2) Pranky

(3) Brisk ✔

(4) Stable

Q.150 Select the most appropriate synonym of the given word.
Judicious

(1) Naïve

(2) Prudent ✔

(3) Impractical

(4) Instinctive

Q.151 Select the most appropriate meaning of the given proverb.
The pen is mightier than the sword.

(1) Success comes from using your intellect wisely.

(2) Always resolve conflicts through peaceful means.

(3) Written words have more power than physical force. ✔

(4) Writing alone cannot bring about change and justice.

Q.152 Identify the INCORRECTLY spelt word in the given sentence.
She received a cirtificate for her outstanding performance in the competition.

(1) competition

(2) outstanding

(3) received

(4) cirtificate ✔

Q.153 Select the most appropriate meaning of the given idiom.
Spill the beans

(1) To keep a secret

(2) A well-planned strategy

(3) To reveal a secret ✔

(4) A lucky break

QuickSarkari.com | WhatsApp Channel | Telegram: t.me/quick_sarkari

Q.154 Select the correct spelling of the underlined incorrectly spelt word in the given sentence. Arman was known for his gregoriuos nature, always surrounded by friends and laughter.

(1) gragerious
(2) grogerious
(3) gregeries
(4) **gregarious ✔**

Q.155 Select the most appropriate synonym of the given word.
Meticulous

(1) **Precise ✔**
(2) Imprudent
(3) Discordant
(4) Abstruse

Q.156

Read the given passage and answer the questions that follow.
Everyone in the world risks feeling the fallout from climate change, from hotter days to sudden floods. The means to respond vary widely, however. These can be as simple as installing an energy-efficient air conditioner to cool your home. Or as complicated as erecting a sophisticated network of dams and canals to prevent a city from slipping under rising seas. Either way, lots of finance is required, often beyond what individuals or entire countries can afford. Even basic measures to reduce greenhouse gas emissions and adapt to climate change may be out of reach. While all people have inherent human rights to live and thrive, the lack of resources to limit and adjust to climate fallout is pushing a decent life and even survival beyond reach for many.

Which of the following most accurately states the main idea of the passage?

(1) Drought and floods
(2) How to live a decent life
(3) **The impact of climate change ✔**
(4) Greenhouse gas

Q.157

Read the given passage and answer the questions that follow.
Everyone in the world risks feeling the fallout from climate change, from hotter days to sudden floods. The means to respond vary widely, however. These can be as simple as installing an energy-efficient air conditioner to cool your home. Or as complicated as erecting a sophisticated network of dams and canals to prevent a city from slipping under rising seas. Either way, lots of finance is required, often beyond what individuals or entire countries can afford. Even basic measures to reduce greenhouse gas emissions and adapt to climate change may be out of reach. While all people have inherent human rights to live and thrive, the lack of resources to limit and adjust to climate fallout is pushing a decent life and even survival beyond reach for many.

Which is the best description of the tone of the passage?

(1) Provocative
(2) Humanistic ✔
(3) Cynical
(4) Harsh

Q.158

Read the given passage and answer the questions that follow.
Everyone in the world risks feeling the fallout from climate change, from hotter days to sudden floods. The means to respond vary widely, however. These can be as simple as installing an energy-efficient air conditioner to cool your home. Or as complicated as erecting a sophisticated network of dams and canals to prevent a city from slipping under rising seas. Either way, lots of finance is required, often beyond what individuals or entire countries can afford. Even basic measures to reduce greenhouse gas emissions and adapt to climate change may be out of reach. While all people have inherent human rights to live and thrive, the lack of resources to limit and adjust to climate fallout is pushing a decent life and even survival beyond reach for many.

Select the most appropriate ANTONYM of the given word from the passage.
Complicated

(1) Silent
(2) Simple ✔
(3) Special
(4) Cheap

Q.159

Read the given passage and answer the questions that follow.
Everyone in the world risks feeling the fallout from climate change, from hotter days to sudden floods. The means to respond vary widely, however. These can be as simple as installing an energy-efficient air conditioner to cool your home. Or as complicated as erecting a sophisticated network of dams and canals to prevent a city from slipping under rising seas. Either way, lots of finance is required, often beyond what individuals or entire countries can afford. Even basic measures to reduce greenhouse gas emissions and adapt to climate change may be out of reach. While all people have inherent human rights to live and thrive, the lack of resources to limit and adjust to climate fallout is pushing a decent life and even survival beyond reach for many.

According to the passage, what is a simple way to respond to climate change?

(1) Building underground metro systems
(2) Launching satellites for weather forecasting
(3) Installing an energy-efficient air conditioner ✔
(4) Replacing all vehicles with electric ones

Q.160

Read the given passage and answer the questions that follow.
Everyone in the world risks feeling the fallout from climate change, from hotter days to sudden floods. The means to respond vary widely, however. These can be as simple as installing an energy-efficient air conditioner to cool your home. Or as complicated as erecting a sophisticated network of dams and canals to prevent a city from slipping under rising seas. Either way, lots of finance is required, often beyond what individuals or entire countries can afford. Even basic measures to reduce greenhouse gas emissions and adapt to climate change may be out of reach. While all people have inherent human rights to live and thrive, the lack of resources to limit and adjust to climate fallout is pushing a decent life and even survival beyond reach for many.

Select the most appropriate ANTONYM of the given word from the passage.
Inherent

(1) Ancient
(2) Authentic
(3) Acquired ✔
(4) Beneficial

Hindi Language and Comprehension

Q.161 निम्नलिखित वाक्य खंड क्रम से लिखें।
1. चतुर हो, इसलिए
2. पसंद करते हैं
3. तुम पढ़ने में
4. तुमको सभी शिक्षक

(1) 3142 ✔
(2) 1234
(3) 4231
(4) 2143

Q.162 उचित संबोधन कारक चुनकर निम्नलिखित वाक्य के रिक्त स्थान की पूर्ति करें- ' _____ ईश्वर ! मुझ पर दया करो '

(1) अरे

(2) अजी

(3) ओ

(4) हे ✔

Q.163 निम्नलिखित वाक्य को ध्यानपूर्वक पढ़ें और वाक्य में त्रुटि की पहचान कर वाक्य शुद्ध करें।
तुम मत रवि को बताना कि गाड़ी खराब उसकी हो गई।

(1) तुम रवि मत को बताना उसकी कि गाड़ी खराब हो गई।

(2) तुम को रवि मत कि बताना हो उसकी गाड़ी खराब गई।

(3) तुम बताना रवि को मत कि खराब उसकी गाड़ी हो गई।

(4) तुम रवि को मत बताना कि उसकी गाड़ी खराब हो गई। ✔

Q.164 'एक वस्तु लेकर उसके बदले में दूसरी वस्तु देना' वाक्यांश के लिए सार्थक शब्द का विकल्पों में से चयन कीजिए।

(1) विक्रय

(2) व्यापार

(3) क्रय

(4) विनिमय ✔

Q.165 इस वाक्य में कौन सा शब्द क्रिया है। निम्नलिखित विकल्पों में से सही विकल्प का चयन कर वाक्य को पूर्ण करें।
'मेरी बहन सुधा मुझसे हिंदी भाषा सीखती है।' इस वाक्य में_____शब्द क्रिया है।

(1) बहन

(2) सीखती ✔

(3) भाषा

(4) हिंदी

Q.166 निम्न में से अतिरिक्त वाक्य पहचाने-- 1.कुतुब परिसर में स्थित लौह स्तम्भ में 98 प्रतिशत लोहा है।
2.परंतु इस लौह स्तम्भ में इतने वर्षों बाद भी जंग नहीं लगा।
3.यह खुले आसमान के नीचे सदियों से अविचल खड़ा है।
4.इसे ध्वज स्तम्भ के रूप में खड़ा किया गया था।
5.यह एक पाँच मंज़िला इमारत है, जिस पर क़ुरान की आयते हैं।

(1) 1

(2) 2

(3) 5 ✔

(4) 4

Q.167 'जैसा व्यक्ति वैसी आवभगत' अर्थ निम्न में से किस लोकोक्ति का है--

(1) ऊँट के मुँह में ज़ीरा

(2) ईंट की देवी, माँगे का प्रसाद ✔

(3) उसी की जूती उसी के सिर

(4) ईंट की लेनी, पत्थर की देनी

Q.168 दिए गए वाक्य का विन्यास की दृष्टि से शुद्ध रूप निम्न में से होगा— अंदर मनुष्य के प्रेम, दया, करुणा आदि गुण होने ही चाहिए।

(1) प्रेम, दया, करुणा आदि गुण होने ही चाहिए अंदर मनुष्य के।

(2) मनुष्य के अंदर प्रेम, दया, करुणा आदि गुण होने ही चाहिए। ✔

(3) मनुष्य के अंदर प्रेम, दया, करुणा गुण होने ही चाहिए आदि।

(4) मनुष्य के अंदर प्रेम, दया, करुणा होने ही चाहिए आदि गुण।

Q.169 वाक्यांश के लिए सार्थक शब्द का चयन कर 'जोआसानीसेमिलताहै'

(1) आसान

(2) **सुलभ ✔**

(3) उपलब्ध

(4) तुरंत

Q.170 निम्नलिखित वाक्य को पूर्ण करने के लिए उचित कालवाचक क्रिया-विशेषण का चयन करें- माँ ने कहा कि मेहमान _____ आने वाले हैं।

(1) सावधानी से

(2) दाएँ

(3) **अब ✔**

(4) काफ़ी

Q.171 निम्नलिखित मुहावरे के लिय उपयुक्त सार्थक शब्द है- घर का न घाट का

(1) बाहर चले जाना

(2) घूमते रहना

(3) चलते रहना

(4) **कहीं का न रहना ✔**

Q.172 निम्नलिखित विकल्पों में से एक भिन्न अतिरिक्त वाक्य का चयन करें।

(1) लेकिन एक अवधारणा के तौर पर सूचना की जाँच- पड़ताल बहुत कम हुई है

(2) सूचना समाज के पैरोकार भी एक विचार के रूप में सूचना के सूत्रीकरण पर ज्यादा दिमाग खपाते नहीं दिखाई देते

(3) मानव इतिहास के प्रत्येक दौर में सूचना के उत्पादन, प्रयोग, संग्रह और वितरण का केंद्रीय महत्व रहा है

(4) **समाज और संस्कृति की समय सापेक्ष विशेषताएँ होती हैं, यह विशेषताएँ समय सापेक्ष बदलती रहती हैं ✔**

Q.173 उचित कारक चिह्न चुनकर निम्नलिखित वाक्य के रिक्त स्थान की पूर्ति करें- 'नियत समय ___ काम करो और उसका मीठा फल पाओ'

(1) से

(2) **पर ✔**

(3) के द्वारा

(4) का

Q.174 नीचे दिए गए वाक्य के लिए सही कारक का चुनाव करें ।

..... एक रुपया दिलवाया।

(1) कोई

(2) यह

(3) **उसने ✔**

(4) वह

Q.175 'प्रत्येक व्यक्ति जीना चाहते हैं' वाक्य के किस अंश में दोष है ?

(1) प्रत्येक

(2) व्यक्ति

(3) जीना

(4) **चाहते हैं ✔**

QuickSarkari.com | WhatsApp Channel | Telegram: t.me/quick_sarkari

Q.176

गद्यांश के आधार पर प्रश्न का उत्तर दें ।
जिस दिन नेता सुधार के मार्ग पर पैर रखे, उसी दिन उसे प्राणों का मोह छोड़ देना चाहिए क्योंकि सहयोगियों का विश्वासघात और विरोधियों की नंगी तलवार सदा उसके मस्तक पर नृत्य किया करती है कभी-कभी ऐसा समय आ जाता है जब अनुयायी साथ देना छोड़कर सदा के लिए किनारा कर लेते हैं। महात्मा बुद्ध को भी उनके शिष्य छोड़कर चले गये थे। सत्य की रक्षा के लिए कर्तव्य से दूर नहीं भागना चाहिए। सिद्धान्तो की सत्यता पर विश्वास करके आगे बढ़ना चाहिए। "मेरे जीवन की अपेक्षा मेरी मृत्यु से ही सत्य का अधिक कल्याण होगा" - यह कहते हुए महात्मा ईसा सूली पर चढ़ गये और महान दार्शनिक सुकरात मुस्कराते हुए जहर का प्याला पी गए। इतिहास साक्षी है कि महात्मा ईसा के साथ उनका धर्म सूली पर नही चढ़ाया जा सका और न सुकरात के साथ उनके शाश्वत सिद्धान्तों का अन्त हुआ।

'आतताइयों' शब्द का सही अर्थ चुनिए ।

(1) पापियों
(2) **अत्याचारियों ✔**
(3) अधर्मियों
(4) ढोंगियों

Q.177

गद्यांश के आधार पर प्रश्न का उत्तर दें ।
जिस दिन नेता सुधार के मार्ग पर पैर रखे, उसी दिन उसे प्राणों का मोह छोड़ देना चाहिए क्योंकि सहयोगियों का विश्वासघात और विरोधियों की नंगी तलवार सदा उसके मस्तक पर नृत्य किया करती है कभी-कभी ऐसा समय आ जाता है जब अनुयायी साथ देना छोड़कर सदा के लिए किनारा कर लेते हैं। महात्मा बुद्ध को भी उनके शिष्य छोड़कर चले गये थे। सत्य की रक्षा के लिए कर्तव्य से दूर नहीं भागना चाहिए। सिद्धान्तो की सत्यता पर विश्वास करके आगे बढ़ना चाहिए। "मेरे जीवन की अपेक्षा मेरी मृत्यु से ही सत्य का अधिक कल्याण होगा" - यह कहते हुए महात्मा ईसा सूली पर चढ़ गये और महान दार्शनिक सुकरात मुस्कराते हुए जहर का प्याला पी गए। इतिहास साक्षी है कि महात्मा ईसा के साथ उनका धर्म सूली पर नही चढ़ाया जा सका और न सुकरात के साथ उनके शाश्वत सिद्धान्तों का अन्त हुआ।

नेताओं को अपने प्राणों का मोह कब त्याग देना चाहिए?

(1) परिवार पर ध्यान दें
(2) मित्रों के साथ घूमें
(3) अपना स्वार्थ देखें
(4) **जब नेता सुधार के मार्ग पर पैर रखे ✔**

Q.178

गद्यांश के आधार पर प्रश्न का उत्तर दें ।
जिस दिन नेता सुधार के मार्ग पर पैर रखे, उसी दिन उसे प्राणों का मोह छोड़ देना चाहिए क्योंकि सहयोगियों का विश्वासघात और विरोधियों की नंगी तलवार सदा उसके मस्तक पर नृत्य किया करती है कभी-कभी ऐसा समय आ जाता है जब अनुयायी साथ देना छोड़कर सदा के लिए किनारा कर लेते हैं। महात्मा बुद्ध को भी उनके शिष्य छोड़कर चले गये थे। सत्य की रक्षा के लिए कर्तव्य से दूर नहीं भागना चाहिए। सिद्धान्तो की सत्यता पर विश्वास करके आगे बढ़ना चाहिए। "मेरे जीवन की अपेक्षा मेरी मृत्यु से ही सत्य का अधिक कल्याण होगा" - यह कहते हुए महात्मा ईसा सूली पर चढ़ गये और महान दार्शनिक सुकरात मुस्कराते हुए जहर का प्याला पी गए। इतिहास साक्षी है कि महात्मा ईसा के साथ उनका धर्म सूली पर नही चढ़ाया जा सका और न सुकरात के साथ उनके शाश्वत सिद्धान्तों का अन्त हुआ।

सुकरात ने जहर का प्याला क्यों पिया ?

(1) देवत्व प्राप्त करने के लिए
(2) अपने घर परिवार के हित लिए
(3) अनुयायियों की रक्षा के लिए
(4) **सत्य और निष्ठा के लिए ✔**

QuickSarkari.com | WhatsApp Channel | Telegram: t.me/quick_sarkari

Q.179

गद्यांश के आधार पर प्रश्न का उत्तर दें ।
जिस दिन नेता सुधार के मार्ग पर पैर रखे, उसी दिन उसे प्राणों का मोह छोड़ देना चाहिए क्योंकि सहयोगियों का विश्वासघात और विरोधियों की नंगी तलवार सदा उसके मस्तक पर नृत्य किया करती है कभी-कभी ऐसा समय आ जाता है जब अनुयायी साथ देना छोड़कर सदा के लिए किनारा कर लेते हैं। महात्मा बुद्ध को भी उनके शिष्य छोड़कर चले गये थे। सत्य की रक्षा के लिए कर्तव्य से दूर नहीं भागना चाहिए। सिद्धान्तो की सत्यता पर विश्वास करके आगे बढ़ना चाहिए। ''मेरे जीवन की अपेक्षा मेरी मृत्यु से ही सत्य का अधिक कल्याण होगा'' - यह कहते हुए महात्मा ईसा सूली पर चढ़ गये और महान दार्शनिक सुकरात मुस्कराते हुए जहर का प्याला पी गए। इतिहास साक्षी है कि महात्मा ईसा के साथ उनका धर्म सूली पर नही चढ़ाया जा सका और न सुकरात के साथ उनके शाश्वत सिद्धान्तों का अन्त हुआ।

महात्मा ईसा के साथ किसे सूली पर नही चढ़ाया जा सका ?

(1) उनके गुरु को
(2) उनके शिष्य को
(3) **उनके धर्म को ✔**
(4) उनके सहयोगी को

Q.180

गद्यांश के आधार पर प्रश्न का उत्तर दें ।
जिस दिन नेता सुधार के मार्ग पर पैर रखे, उसी दिन उसे प्राणों का मोह छोड़ देना चाहिए क्योंकि सहयोगियों का विश्वासघात और विरोधियों की नंगी तलवार सदा उसके मस्तक पर नृत्य किया करती है कभी-कभी ऐसा समय आ जाता है जब अनुयायी साथ देना छोड़कर सदा के लिए किनारा कर लेते हैं। महात्मा बुद्ध को भी उनके शिष्य छोड़कर चले गये थे। सत्य की रक्षा के लिए कर्तव्य से दूर नहीं भागना चाहिए। सिद्धान्तो की सत्यता पर विश्वास करके आगे बढ़ना चाहिए। ''मेरे जीवन की अपेक्षा मेरी मृत्यु से ही सत्य का अधिक कल्याण होगा'' - यह कहते हुए महात्मा ईसा सूली पर चढ़ गये और महान दार्शनिक सुकरात मुस्कराते हुए जहर का प्याला पी गए। इतिहास साक्षी है कि महात्मा ईसा के साथ उनका धर्म सूली पर नही चढ़ाया जा सका और न सुकरात के साथ उनके शाश्वत सिद्धान्तों का अन्त हुआ।

"महान दार्शनिक सुकरात मुस्कराते हुए जहर का प्याला पी गए"
इस कथन में कौन सा भाव निहित है ?

(1) कृतज्ञता का
(2) **बलिदान का ✔**
(3) खुशी का
(4) करुणा का

Q.181 निम्नलिखित में से कौन सा शब्द 'मूल' का अनेकार्थी नहीं है –

(1) जड़
(2) एक नक्षत्र
(3) पूँजी
(4) **शंख ✔**

Q.182 दिए गए विकल्पों में से कौन-सा शब्द तद्भव शब्द नहीं है?

(1) कान
(2) **चंद्र ✔**
(3) खेत
(4) घड़ी

Q.183 'मयन' किसका पर्यायवाची है –

(1) भगवान

(2) इंद्र

(3) कार्तिकेय

(4) **कामदेव ✔**

Q.184 विज्ञान की देन है - विश्लेषण, निव्यर्क्तिकता तथा तटस्था। रेखांकित शब्द के लिए शुद्ध शब्द का चयन कीजिये।

(1) निव्यर्क्तिकता

(2) निव्यर्कितकता

(3) **निर्वैयक्तिकता ✔**

(4) निर्वेयक्तिकता

Q.185 दिये गये वाक्य के किस भाग में त्रुटि है?

एक बड़े भू-क्षेत्र में लंबे समय तक रहने वाले मोसम की औसत स्थिति को जलवायु की संज्ञा दी जाती है।

(1) लंबे समय तक रहने वाले

(2) **मोसम की औसत स्थिति को ✔**

(3) एक बड़े भू-क्षेत्र में

(4) जलवायु की संज्ञा दी जाती है

Q.186 निम्नलिखित मुहावरे का सही अर्थ पहचानें।

टंटा खड़ा करना

(1) सभा बुलाना

(2) भीड़ इकट्ठा करना

(3) **झगड़ा करना ✔**

(4) जश्न मनाना

Q.187 निम्न में से किस मुहावरे का अर्थ 'घर में बेकार बैठे रहना' होता है ?

(1) औने पौने करना

(2) **अंडे सेना ✔**

(3) अंग टूटना

(4) अगर-मगर करना

Q.188 'पोखर' शब्द है –

(1) देशज

(2) विदेशज

(3) तत्सम

(4) **तद्भव ✔**

Q.189 निम्नलिखित वाक्य के किस भाग में त्रुटि है?

'आपकी सहायता के लिए मैं उपषसितित हूँ'

(1) **उपषसितित हूँ ✔**

(2) आपकी

(3) के लिए मै

(4) सहायता

QuickSarkari.com | WhatsApp Channel | Telegram: t.me/quick_sarkari

Q.190 निम्नलिखित शब्दों में से 'अहेरी' का पर्यायवाची शब्द बताओ ?

(1) उपर्युक्त में से कोई नही

(2) **शिकारी ✔**

(3) अडिग

(4) लोहा

Q.191 दिए गए वाक्य के किस अंश में वर्तनी की दृष्टि से त्रुटि है पहचाने--- पानी अपने साथ मिट्ठी और पत्थर बहा ले जाता है।

(1) **साथ मिट्ठी और ✔**

(2) पत्थर बहा

(3) ले जाता है।

(4) पानी अपने

Q.192 दिए गए विकल्पों में से कौन-सा शब्द 'मुद्रा' शब्द के अनेक अर्थों में से एक नहीं है?

(1) मोहर

(2) अंगूठी

(3) **लाल ✔**

(4) सिक्का

Q.193 निम्नलिखित मुहावरे के उपयुक्त अर्थ का चयन करें - आग में पानी डालना

(1) अप्राप्य वस्तु

(2) **क्रोध शांत करना ✔**

(3) क्रोध बढ़ाना

(4) असंभव कार्य करना

Q.194 दिए गए विकल्पों में से 'विहान' शब्द के उचित अर्थ का चयन करें-

(1) **अरुणोदय ✔**

(2) चिड़िया

(3) भ्रमण

(4) वीणा

Q.195 निम्नलिखित विकल्पों में से कौन सा एक विलोम युग्म सही नहीं है?

(1) साक्षर-निरक्षर

(2) सदय-निर्दय

(3) संकल्प-विकल्प

(4) **वक्र-बाँका ✔**

QuickSarkari.com | WhatsApp Channel | Telegram: t.me/quick_sarkari

Q.196

गद्यांश के आधार पर प्रश्न का उत्तर दें।
अपनी कमजोरियों से लड़ें। अपने शुभ गुणों के विकास का संकल्प लें। संसार के उत्थान की शुरुआत अपने उत्थान से होती है। अत: हम संकल्प करें कि सन्मार्ग को छोड़कर न चलें, हम दुर्गुणों को भले ही सुला दे परन्तु अपने सद्गुणों को जगाए रखें।
सभी आदमी अच्छे और सभी आदमी बुरे हो सकते हैं। कुछ लोग रात दिन अपने दुर्गुणों के प्रेत को जगाने के लिए शमशान पूजा में लगे रहते हैं। इसी काम में अपनी पूरी ताकत झोंक देते हैं और एक बुरे व्यक्ति के रूप में बदनाम हो जाते हैं। कुछ व्यक्ति शुभ चिन्तन की ऊर्जा में अपने सदगुणों को जगाए रखते हैं और एक अच्छे आदमी की छवि निर्मित कर लेते हैं।
अच्छा-बुरा सब कुछ हमारे भीतर है। बुराई पल भर में किसी भी पूज्य को निंदनीय व्यक्ति बना सकती है अतः हम संकल्प लें कि हमारे मन का शिवरूप सदा जागृत रहें। हम अपने परिवार की उन्नति का संकल्प लें। पारिवारिक प्रगति एवं उन्नति के लिए अनुचित साधनों का इस्तेमाल न करें। जिस प्रकार के साधन होंगे, सिद्धि भी उसी प्रकार की होगी। हर प्रकार की व्यस्तता के बीच संतान के भविष्य की चिन्ता करें। बगीचे के छोटे से पौधे को हम नियमित रूप से सींचते है आने वाले कल की तैयारी करते हैं। परंतु संतान के प्रति पूरी तरह लापरवाह बने रहते हैं। संतान हमारा भविष्य है। उसके वर्तमान पर ध्यान दें । उसका वर्तमान सुधारें अन्यथा हमारा आने वाला कल दुखद एवं नारकीय होगा।

पारिवारिक उन्नति के लिए इनमें से कौन सी बात नहीं कही गई है ?

(1) परिवार के सदस्यों को संघर्ष करने के लिए प्रेरित करें। ✔
(2) आने वाले कल की तैयारी करें।
(3) अनुचित साधनों का कभी प्रयोग न करें ।
(4) हर तरह की व्यस्तता के बीच संतान के भविष्य की चिन्ता करें।

Q.197

गद्यांश के आधार पर प्रश्न का उत्तर दें।
अपनी कमजोरियों से लड़ें। अपने शुभ गुणों के विकास का संकल्प लें। संसार के उत्थान की शुरुआत अपने उत्थान से होती है। अत: हम संकल्प करें कि सन्मार्ग को छोड़कर न चलें, हम दुर्गुणों को भले ही सुला दे परन्तु अपने सद्गुणों को जगाए रखें।
सभी आदमी अच्छे और सभी आदमी बुरे हो सकते हैं। कुछ लोग रात दिन अपने दुर्गुणों के प्रेत को जगाने के लिए शमशान पूजा में लगे रहते हैं। इसी काम में अपनी पूरी ताकत झोंक देते हैं और एक बुरे व्यक्ति के रूप में बदनाम हो जाते हैं। कुछ व्यक्ति शुभ चिन्तन की ऊर्जा में अपने सदगुणों को जगाए रखते हैं और एक अच्छे आदमी की छवि निर्मित कर लेते हैं।
अच्छा-बुरा सब कुछ हमारे भीतर है। बुराई पल भर में किसी भी पूज्य को निंदनीय व्यक्ति बना सकती है अतः हम संकल्प लें कि हमारे मन का शिवरूप सदा जागृत रहें। हम अपने परिवार की उन्नति का संकल्प लें। पारिवारिक प्रगति एवं उन्नति के लिए अनुचित साधनों का इस्तेमाल न करें। जिस प्रकार के साधन होंगे, सिद्धि भी उसी प्रकार की होगी। हर प्रकार की व्यस्तता के बीच संतान के भविष्य की चिन्ता करें। बगीचे के छोटे से पौधे को हम नियमित रूप से सींचते है आने वाले कल की तैयारी करते हैं। परंतु संतान के प्रति पूरी तरह लापरवाह बने रहते हैं। संतान हमारा भविष्य है। उसके वर्तमान पर ध्यान दें । उसका वर्तमान सुधारें अन्यथा हमारा आने वाला कल दुखद एवं नारकीय होगा।

गद्यांश के अनुसार बुराई पल भर में क्या कर सकती हैं ?

(1) दण्डित कर सकती है।
(2) लोगों की नजरों में गिरा सकती है।
(3) किसी भी पूज्य को निंदनीय बना सकती है ✔
(4) समाज में अच्छा नाम कर सकती है

Q.198

गद्यांश के आधार पर प्रश्न का उत्तर दें।
अपनी कमजोरियों से लड़ें। अपने शुभ गुणों के विकास का संकल्प लें। संसार के उत्थान की शुरुआत अपने उत्थान से होती है। अत: हम संकल्प करें कि सन्मार्ग को छोड़कर न चलें, हम दुर्गुणों को भले ही सुला दे परन्तु अपने सद्गुणों को जगाए रखें।
सभी आदमी अच्छे और सभी आदमी बुरे हो सकते हैं। कुछ लोग रात दिन अपने दुर्गुणों के प्रेत को जगाने के लिए शमशान पूजा में लगे रहते हैं। इसी काम में अपनी पूरी ताकत झोंक देते हैं और एक बुरे व्यक्ति के रूप में बदनाम हो जाते हैं। कुछ व्यक्ति शुभ चिन्तन की ऊर्जा में अपने सदगुणों को जगाए रखते हैं और एक अच्छे आदमी की छवि निर्मित कर लेते हैं।
अच्छा-बुरा सब कुछ हमारे भीतर है। बुराई पल भर में किसी भी पूज्य को निंदनीय व्यक्ति बना सकती है अतः हम संकल्प लें कि हमारे मन का शिवरूप सदा जागृत रहें। हम अपने परिवार की उन्नति का संकल्प लें। पारिवारिक प्रगति एवं उन्नति के लिए अनुचित साधनों का इस्तेमाल न करें। जिस प्रकार के साधन होंगे, सिद्धि भी उसी प्रकार की होगी। हर प्रकार की व्यस्तता के बीच संतान के भविष्य की चिन्ता करें। बगीचे के छोटे से पौधे को हम नियमित रूप से सींचते है आने वाले कल की तैयारी करते हैं। परंतु संतान के प्रति पूरी तरह लापरवाह बने रहते हैं। संतान हमारा भविष्य है। उसके वर्तमान पर ध्यान दें । उसका वर्तमान सुधारें अन्यथा हमारा आने वाला कल दुखद एवं नारकीय होगा।

मनुष्य का आने वाला कल कब दुखद हो जाता है ?

(1) भौतिक सुख साधन जुटाने से
(2) काम न करने से
(3) सद्भाव अपनाने से
(4) संतान के वर्तमान पर ध्यान न देने से। ✔

Q.199

गद्यांश के आधार पर प्रश्न का उत्तर दें।
अपनी कमजोरियों से लड़ें। अपने शुभ गुणों के विकास का संकल्प लें। संसार के उत्थान की शुरुआत अपने उत्थान से होती है। अत: हम संकल्प करें कि सन्मार्ग को छोड़कर न चलें, हम दुर्गुणों को भले ही सुला दे परन्तु अपने सद्गुणों को जगाए रखें।
सभी आदमी अच्छे और सभी आदमी बुरे हो सकते हैं। कुछ लोग रात दिन अपने दुर्गुणों के प्रेत को जगाने के लिए शमशान पूजा में लगे रहते हैं। इसी काम में अपनी पूरी ताकत झोंक देते हैं और एक बुरे व्यक्ति के रूप में बदनाम हो जाते हैं। कुछ व्यक्ति शुभ चिन्तन की ऊर्जा में अपने सदगुणों को जगाए रखते हैं और एक अच्छे आदमी की छवि निर्मित कर लेते हैं।
अच्छा-बुरा सब कुछ हमारे भीतर है। बुराई पल भर में किसी भी पूज्य को निंदनीय व्यक्ति बना सकती है अतः हम संकल्प लें कि हमारे मन का शिवरूप सदा जागृत रहें। हम अपने परिवार की उन्नति का संकल्प लें। पारिवारिक प्रगति एवं उन्नति के लिए अनुचित साधनों का इस्तेमाल न करें। जिस प्रकार के साधन होंगे, सिद्धि भी उसी प्रकार की होगी। हर प्रकार की व्यस्तता के बीच संतान के भविष्य की चिन्ता करें। बगीचे के छोटे से पौधे को हम नियमित रूप से सींचते है आने वाले कल की तैयारी करते हैं। परंतु संतान के प्रति पूरी तरह लापरवाह बने रहते हैं। संतान हमारा भविष्य है। उसके वर्तमान पर ध्यान दें । उसका वर्तमान सुधारें अन्यथा हमारा आने वाला कल दुखद एवं नारकीय होगा।

गद्यांश में लेखक किसको जगाने की बात कर रहे है ?

(1) सद्गुणों को । ✔
(2) अवगुणों को ।
(3) साहस को
(4) भौतिक सुखों को |

Q.200

गद्यांश के आधार पर प्रश्न का उत्तर दें।
अपनी कमजोरियों से लड़ें। अपने शुभ गुणों के विकास का संकल्प लें। संसार के उत्थान की शुरुआत अपने उत्थान से होती है। अत: हम संकल्प करें कि सन्मार्ग को छोड़कर न चलें, हम दुर्गुणों को भले ही सुला दे परन्तु अपने सद्गुणों को जगाए रखें।
सभी आदमी अच्छे और सभी आदमी बुरे हो सकते हैं। कुछ लोग रात दिन अपने दुर्गुणों के प्रेत को जगाने के लिए शमशान पूजा में लगे रहते हैं। इसी काम में अपनी पूरी ताकत झोंक देते हैं और एक बुरे व्यक्ति के रूप में बदनाम हो जाते हैं। कुछ व्यक्ति शुभ चिन्तन की ऊर्जा में अपने सदगुणों को जगाए रखते हैं और एक अच्छे आदमी की छवि निर्मित कर लेते हैं।
अच्छा-बुरा सब कुछ हमारे भीतर है। बुराई पल भर में किसी भी पूज्य को निंदनीय व्यक्ति बना सकती है अतः हम संकल्प लें कि हमारे मन का शिवरूप सदा जागृत रहें। हम अपने परिवार की उन्नति का संकल्प लें। पारिवारिक प्रगति एवं उन्नति के लिए अनुचित साधनों का इस्तेमाल न करें। जिस प्रकार के साधन होंगे, सिद्धि भी उसी प्रकार की होगी। हर प्रकार की व्यस्तता के बीच संतान के भविष्य की चिन्ता करें। बगीचे के छोटे से पौधे को हम नियमित रूप से सींचते है आने वाले कल की तैयारी करते हैं। परंतु संतान के प्रति पूरी तरह लापरवाह बने रहते हैं। संतान हमारा भविष्य है। उसके वर्तमान पर ध्यान दें । उसका वर्तमान सुधारें अन्यथा हमारा आने वाला कल दुखद एवं नारकीय होगा।

किस संकल्प की बात लेखक ने नहीं की है ?

(1) सन्मार्ग पर चलना कभी न छोड़
(2) **कमजोर लोगों की मदद करें ✔**
(3) अपने शुभ गुणों का विकास करें
(4) अपने दुर्गुणों को समाप्त करें

Answer Key / उत्तर कुंजी

1 3	**2** 3	**3** 3	**4** 3	**5** 1	**6** 3	**7** 2	**8** 1	**9** 3	**10** 1	**11** 4	**12** 4	**13** 1	**14** 1	**15** 1
16 2	**17** 3	**18** 3	**19** 4	**20** 3	**21** 3	**22** 4	**23** 4	**24** 2	**25** 4	**26** 4	**27** 1	**28** 2	**29** 2	**30** 1
31 4	**32** 1	**33** 3	**34** 1	**35** 4	**36** 3	**37** 1	**38** 1	**39** 2	**40** 1	**41** 3	**42** 1	**43** 1	**44** 2	**45** 2
46 4	**47** 4	**48** 2	**49** 2	**50** 3	**51** 1	**52** 1	**53** 3	**54** 1	**55** 3	**56** 4	**57** 4	**58** 1	**59** 2	**60** 1
61 3	**62** 2	**63** 4	**64** 1	**65** 4	**66** 2	**67** 1	**68** 1	**69** 4	**70** 3	**71** 1	**72** 2	**73** 3	**74** 4	**75** 1
76 2	**77** 1	**78** 2	**79** 2	**80** 4	**81** 3	**82** 1	**83** 2	**84** 4	**85** 1	**86** 2	**87** 3	**88** 4	**89** 4	**90** 2
91 4	**92** 3	**93** 1	**94** 2	**95** 2	**96** 3	**97** 2	**98** 4	**99** 2	**100** 4	**101** 1	**102** 1	**103** 2	**104** 1	**105** 2
106 4	**107** 4	**108** 1	**109** 1	**110** 3	**111** 4	**112** 2	**113** 2	**114** 2	**115** 1	**116** 2	**117** 2	**118** 4	**119** 2	**120** 2
121 3	**122** 2	**123** 3	**124** 4	**125** 4	**126** 3	**127** 4	**128** 1	**129** 1	**130** 3	**131** 3	**132** 3	**133** 4	**134** 3	**135** 4
136 2	**137** 1	**138** 4	**139** 1	**140** 2	**141** 2	**142** 3	**143** 2	**144** 4	**145** 1	**146** 3	**147** 3	**148** 3	**149** 3	**150** 2
151 3	**152** 4	**153** 3	**154** 4	**155** 1	**156** 3	**157** 2	**158** 2	**159** 3	**160** 3	**161** 1	**162** 4	**163** 4	**164** 4	**165** 2
166 3	**167** 2	**168** 2	**169** 2	**170** 3	**171** 4	**172** 4	**173** 2	**174** 3	**175** 4	**176** 2	**177** 4	**178** 4	**179** 3	**180** 2
181 4	**182** 2	**183** 4	**184** 3	**185** 2	**186** 3	**187** 2	**188** 4	**189** 1	**190** 2	**191** 1	**192** 3	**193** 2	**194** 1	**195** 4

196	197	198	199	200
1	3	4	1	2

QuickSarkari

Participant ID	
Participant Name	
Test Center Name	
Test Date	07/08/2025
Test Time	1:00 PM - 3:00 PM
Subject	LABORATORY ATTENDANT

Section : **General intelligence and Reasoning Ability**

Q.1 **Each of A, B, C, D, E and F lives on a different floor of a six-storey building. The bottommost floor of the building is numbered as 1; the floor above it is numbered as 2 and so on. The topmost floor is numbered as 6. C lives on an odd-numbered floor but not on floor number 3. Only three people live between F and C. E lives immediately below D. D lives on an odd-numbered floor. A does not live on the topmost floor. A lives on one of the floors below C. On which floor does A live?**

Ans
✗ 1. Floor number 2
✗ 2. Floor number 3
✓ 3. Floor number 4
✗ 4. Floor number 5

Question ID : **441009351708**
Option 1 ID : **4410091373194**
Option 2 ID : **4410091373195**
Option 3 ID : **4410091373196**
Option 4 ID : **4410091373197**

Q.2 **In a certain code language, 'pen paper' is coded as 'kp gk' and 'paper is white' is coded as 'hw gk bj'. How is 'paper' coded in the given language?**

Ans
✗ 1. kp
✗ 2. hw
✓ 3. gk
✗ 4. bj

Question ID : **441009351616**
Option 1 ID : **4410091372827**
Option 2 ID : **4410091372829**
Option 3 ID : **4410091372828**
Option 4 ID : **4410091372826**

QuickSarkari.com | WhatsApp Channel | Telegram: t.me/quick_sarkari

Q.3 A, B, C, D, E and F are sitting around a circular table, facing the centre. A sits second to the left of D. D sits third to the left of F. B is an immediate neighbour of A. C sits second to the right of B. The position(s) of how many persons will remain unchanged if all persons are arranged in alphabetical order in anticlockwise direction, starting from A?

Ans
✗ 1. Two
✗ 2. Three
✓ 3. Four
✗ 4. One

Question ID : **441009351741**
Option 1 ID : **4410091373327**
Option 2 ID : **4410091373328**
Option 3 ID : **4410091373329**
Option 4 ID : **4410091373326**

Q.4 Each of P, L, K, G, F, U and T travelled on a different day of a week, starting from Monday and ending on Sunday of the same week.
P travelled on Friday. Only three people travelled between G and P. K travelled immediately after L, but not on the last day of the week. U travelled immediately before P. T travelled immediately before F.
How many people travelled between K and F?

Ans
✗ 1. Two
✗ 2. One
✓ 3. Three
✗ 4. Four

Question ID : **441009351684**
Option 1 ID : **4410091373099**
Option 2 ID : **4410091373098**
Option 3 ID : **4410091373100**
Option 4 ID : **4410091373101**

Q.5 Each of A, V, N, X, P, E and R celebrates their birthday on a different day of a week, starting from Monday and ending on Sunday of the same week.
Only three people celebrate their birthday between X and A. P celebrates their birthday immediately before X. Only one person celebrates their birthday after A. R celebrates their birthday on one of the days before V but not on Thursday. E celebrates their birthday immediately before V.
On which day does V celebrate their birthday?

Ans
✓ 1. Friday
✗ 2. Sunday
✗ 3. Wednesday
✗ 4. Monday

Question ID : **441009351683**
Option 1 ID : **4410091373097**
Option 2 ID : **4410091373094**
Option 3 ID : **4410091373096**
Option 4 ID : **4410091373095**

QuickSarkari.com | WhatsApp Channel | Telegram: t.me/quick_sarkari

Q.6 In a row of certain persons, Mr. XYZ is sitting 222nd from the right end and 111th from the left end. Find out the total number of persons in that row.

Ans
✗ 1. 334
✗ 2. 330
✓ 3. 332
✗ 4. 333

Question ID : **441009351666**
Option 1 ID : **4410091373028**
Option 2 ID : **4410091373029**
Option 3 ID : **4410091373027**
Option 4 ID : **4410091373026**

Q.7 CG35 is related to IM70 in a certain way. In the same way, OS105 is related to UY140. To which of the given options is FJ80 related, following the same logic?

Ans
✗ 1. LP125
✓ 2. LP115
✗ 3. LO115
✗ 4. MP115

Question ID : **441009351857**
Option 1 ID : **4410091373779**
Option 2 ID : **4410091373778**
Option 3 ID : **4410091373781**
Option 4 ID : **4410091373780**

Q.8 The position of how many letters will remain unchanged if each of the letters in the word WORTHY is arranged in the English alphabetical order?

Ans
✓ 1. Four
✗ 2. One
✗ 3. Three
✗ 4. Two

Question ID : **441009351809**
Option 1 ID : **4410091373592**
Option 2 ID : **4410091373593**
Option 3 ID : **4410091373591**
Option 4 ID : **4410091373590**

Q.9 In a certain code language, 'BUGS' is coded as '4268' and 'GIVE' is coded as '5932'. What is the code for 'G' in that language?

Ans
✗ 1. 6
✗ 2. 5
✓ 3. 2
✗ 4. 9

Question ID : **441009981996**
Option 1 ID : **4410093880452**
Option 2 ID : **4410093880451**
Option 3 ID : **4410093880450**
Option 4 ID : **4410093880453**

Q.10 HNUS is related to KPXU in a certain way based on the English alphabetical order. In the same way, MBJI is related to PDMK. To which of the given options is DVHL related, following the same logic?

Ans
✔ 1. GXKN
✘ 2. HULN
✘ 3. HYJL
✘ 4. IWKM

Question ID : **441009351540**
Option 1 ID : **4410091372522**
Option 2 ID : **4410091372525**
Option 3 ID : **4410091372523**
Option 4 ID : **4410091372524**

Q.11 Y is the daughter of L. I is the brother of the father of Y. L is the wife of K. B is the mother of K. J is the wife of I. How is B related to J?

Ans
✘ 1. Husband's sister
✘ 2. Mother
✘ 3. Son's wife
✔ 4. Husband's mother

Question ID : **441009351832**
Option 1 ID : **4410091373681**
Option 2 ID : **4410091373678**
Option 3 ID : **4410091373679**
Option 4 ID : **4410091373680**

Q.12 The position(s) of how many letters will remain unchanged if each of the letters in the word VIRTUAL is arranged in the English alphabetical order?

Ans
✘ 1. Three
✘ 2. None
✘ 3. Two
✔ 4. One

Question ID : **441009351649**
Option 1 ID : **4410091372961**
Option 2 ID : **4410091372958**
Option 3 ID : **4410091372960**
Option 4 ID : **4410091372959**

Q.13 Each of the letters in the word COMPUTER is arranged as per the English alphabetical order. How many letters are there in the English alphabetical order between the letter that is third from the left and the one that is third from the right in the new letter cluster thus formed?

Ans
✔ 1. Four
✘ 2. One
✘ 3. Two
✘ 4. Three

Question ID : **441009351634**
Option 1 ID : **4410091372901**
Option 2 ID : **4410091372898**
Option 3 ID : **4410091372899**
Option 4 ID : **4410091372900**

QuickSarkari.com | WhatsApp Channel | Telegram: t.me/quick_sarkari

Q.14 Refer to the given number and symbol series and answer the question that follows. Counting to be done from left to right only.

(Left) 3 1 7 7 5 1 @ # # 3 2 # 1 # (Right)

How many symbols are immediately followed by a number and also immediately preceded by a number?

Ans
✔ 1. One
✘ 2. Four
✘ 3. Two
✘ 4. Three

Question ID : **441009351825**
Option 1 ID : **4410091373650**
Option 2 ID : **4410091373653**
Option 3 ID : **4410091373651**
Option 4 ID : **4410091373652**

Q.15 In a certain code language,

'M & N' means 'M is the mother of N',
'M @ N' means 'M is the brother of N',
'M $ N' means 'M is the father of N' and
'M # N' means 'M is the son of N'.

How is K related to G if 'G $ H & I @ J # K'?

Ans
✔ 1. Daughter's husband
✘ 2. Father
✘ 3. Son
✘ 4. Brother

Question ID : **441009351774**
Option 1 ID : **4410091373460**
Option 2 ID : **4410091373459**
Option 3 ID : **4410091373461**
Option 4 ID : **4410091373458**

Q.16 Five people, U, V, W, X and Y, are sitting around a circular table facing the centre. V sits to the immediate left of X, and Y sits to the immediate right of W. W is not an immediate neighbour of X. What is the position of Y with respect to X?

Ans
✘ 1. Second to the right
✔ 2. Second to the left
✘ 3. Immediate left
✘ 4. Immediate right

Question ID : **441009351735**
Option 1 ID : **4410091373303**
Option 2 ID : **4410091373302**
Option 3 ID : **4410091373305**
Option 4 ID : **4410091373304**

Quick Sarkari

Q.17 In the following triads, each group of letters is related to the subsequent one following a certain logic. Select from the given options, the one which follows the same logic.

SEAT - TSEA - ATSE
MAZE - EMAZ - ZEMA

Ans
✗ 1. RAMP - ARPM - MARP
✗ 2. RAMP - PRAM - MPAR
✓ 3. RAMP - PRAM - MPRA
✗ 4. RAMP - PRMA - APRM

Question ID : **441009351416**
Option 1 ID : **4410091372029**
Option 2 ID : **4410091372027**
Option 3 ID : **4410091372028**
Option 4 ID : **4410091372026**

Q.18 Each vowel in the word DEFINITION is changed to the letter immediately following it in the English alphabetical order and each consonant is changed to the letter immediately preceding it in the English alphabetical order. Which of the following letters will appear exactly twice in the new group of letters thus formed?

Ans
✗ 1. S
✗ 2. P
✓ 3. M
✗ 4. J

Question ID : **441009351419**
Option 1 ID : **4410091372040**
Option 2 ID : **4410091372039**
Option 3 ID : **4410091372038**
Option 4 ID : **4410091372041**

Q.19 In a certain code language, 'YOUR' is coded as '4268' and 'UNIT' is coded as '5932'. What is the code for 'U' in the given code language?

Ans
✗ 1. 5
✗ 2. 6
✗ 3. 3
✓ 4. 2

Question ID : **441009981993**
Option 1 ID : **4410093880440**
Option 2 ID : **4410093880441**
Option 3 ID : **4410093880439**
Option 4 ID : **4410093880438**

Q.20 If each vowel in the word LOVELY is changed to the next letter in the English alphabetical series and each consonant is changed to the previous letter in the English alphabetical series, which of the following will be fourth from the left?

Ans
✗ 1. W
✗ 2. E
✓ 3. F
✗ 4. D

Question ID : **441009351810**
Option 1 ID : **4410091373597**
Option 2 ID : **4410091373596**
Option 3 ID : **4410091373595**
Option 4 ID : **4410091373594**

Section : **General intelligence and Reasoning Ability1**

Q.1 Select the correct mirror image of the given combination when the mirror is placed at 'MN' as shown below.

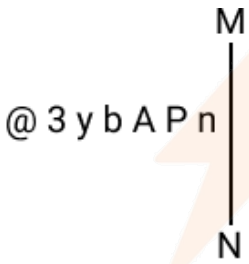

Ans
✗ 1. ᑎ P ∀ d ɣ Ɛ ⓐ
✗ 2. ᑎ ꟼ A d ɣ 3 ⓐ
✓ 3. ᑎ ꟼ A d ɣ Ɛ ⓐ
✗ 4. ᑎ ꟼ A d ɣ Ɛ @

Question ID : **441009351033**
Option 1 ID : **4410091370497**
Option 2 ID : **4410091370496**
Option 3 ID : **4410091370494**
Option 4 ID : **4410091370495**

Q.2 Each of the digits in the number 6913254785438 is arranged in descending order from left to right. What will be the sum of the digits which are third from the left and third from the right in the new number thus formed?

Ans
✗ 1. 8
✗ 2. 13
✗ 3. 10
✓ 4. 11

Question ID : **441009350981**
Option 1 ID : **4410091370289**
Option 2 ID : **4410091370286**
Option 3 ID : **4410091370288**
Option 4 ID : **4410091370287**

QuickSarkari.com | WhatsApp Channel | Telegram: t.me/quick_sarkari

Q.3 Read the given statements and conclusions carefully. Assuming that the information given in the statements is true, even if it appears to be at variance with commonly known facts, decide which of the given conclusion(s) logically follow(s) from the statements.

Statements:
Some lions are pins.
No pin is a clove.

Conclusions:
(I) Some lions are cloves.
(II) Some pins are lions.

Ans
✗ 1. Both conclusions (I) and (II) follow
✗ 2. Neither conclusion (I) nor (II) follows
✗ 3. Only conclusion (I) follows
✓ 4. Only conclusion (II) follows

Question ID : **441009351251**
Option 1 ID : **4410091371369**
Option 2 ID : **4410091371368**
Option 3 ID : **4410091371366**
Option 4 ID : **4410091371367**

Q.4 Select the number from among the given options that will replace the question mark (?) in the given series.

45, 50, 47, 52, 49, 54, ?

Ans
✗ 1. 56
✓ 2. 51
✗ 3. 55
✗ 4. 52

Question ID : **441009350946**
Option 1 ID : **4410091370146**
Option 2 ID : **4410091370148**
Option 3 ID : **4410091370147**
Option 4 ID : **4410091370149**

Q.5 Based on the English alphabetical order, three of the following four letter-cluster pairs are alike in a certain way and thus form a group. Which letter-cluster pair DOES NOT belong to that group?
(Note: The odd one out is not based on the number of consonants/vowels or their position in the letter-cluster.)

Ans
✗ 1. PF - RH
✗ 2. GP - IR
✗ 3. DG - FI
✓ 4. IT - JV

Question ID : **441009351345**
Option 1 ID : **4410091371744**
Option 2 ID : **4410091371745**
Option 3 ID : **4410091371742**
Option 4 ID : **4410091371743**

QuickSarkari.com | WhatsApp Channel | Telegram: t.me/quick_sarkari

Q.6 If '+' means '÷', '–' means '×', '×' means '–' and '÷' means '+', what will come in place of the question mark (?) in the following equation?

211 ÷ 149 × 420 + 35 – 23 = ?

Ans
✗ 1. 96
✗ 2. 88
✗ 3. 92
✓ 4. 84

Question ID : **441009350909**
Option 1 ID : **4410091369998**
Option 2 ID : **4410091370001**
Option 3 ID : **4410091370000**
Option 4 ID : **4410091369999**

Q.7 Read the given statements and conclusions carefully. Assuming that the information given in the statements is true, even if it appears to be at variance with commonly known facts, decide which of the given conclusion(s) logically follow(s) from the statements.

Statements:
All buns are grinders.
All grinders are poles.

Conclusions:
(I) Some poles are grinders.
(II) All buns are poles.

Ans
✓ 1. Both conclusions (I) and (II) follow
✗ 2. Neither conclusion (I) nor (II) follows
✗ 3. Only conclusion (I) follows
✗ 4. Only conclusion (II) follows

Question ID : **441009351250**
Option 1 ID : **4410091371362**
Option 2 ID : **4410091371363**
Option 3 ID : **4410091371365**
Option 4 ID : **4410091371364**

Q.8 Which two numbers should be interchanged to make the following equation correct?

54 – 3 × 5 + (64 ÷ 8) + (7 × 4) + 12 × 2 = 195

(Note: The entire number should be interchanged and not individual digits of a given number.)

Ans
✗ 1. 5 and 2
✓ 2. 8 and 2
✗ 3. 4 and 2
✗ 4. 4 and 3

Question ID : **441009350859**
Option 1 ID : **4410091369799**
Option 2 ID : **4410091369801**
Option 3 ID : **4410091369800**
Option 4 ID : **4410091369798**

QuickSarkari.com | WhatsApp Channel | Telegram: t.me/quick_sarkari

Q.9 **Select the correct mirror image of the given combination when the mirror is placed at 'MN' as shown below.**

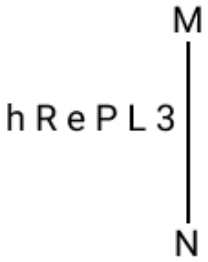

Ans

✗ 1. 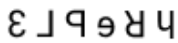

✓ 2. 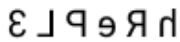

✗ 3. 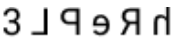

✗ 4. 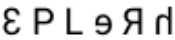

Question ID : **441009351031**
Option 1 ID : **4410091370487**
Option 2 ID : **4410091370486**
Option 3 ID : **4410091370489**
Option 4 ID : **4410091370488**

Q.10 **In the following number pairs, the second number is obtained by applying certain mathematical operations to the first number. Which numbers should replace X and Y so that the pattern followed by the two numbers on the left side of :: is same as that on the right side of ::?**

(Note: Operations should be performed on the whole numbers, without breaking down the numbers into their constituent digits. E.g., 13 – Operations on 13 such as adding/subtracting/multiplying to 13 can be performed. Breaking down 13 into 1 and 3 and then performing mathematical operations on 1 and 3 is not allowed.)

X : 900 :: 10 : Y

Ans

✓ 1. X = 30, Y = 100

✗ 2. X = 33, Y = 99

✗ 3. X = 30, Y = 98

✗ 4. X = 35, Y = 100

Question ID : **441009350800**
Option 1 ID : **4410091369562**
Option 2 ID : **4410091369565**
Option 3 ID : **4410091369563**
Option 4 ID : **4410091369564**

QuickSarkari.com | WhatsApp Channel | Telegram: t.me/quick_sarkari

Q.11 Each of the digits in the number 75968413 is arranged in the descending order from left to right. The position(s) of how many digits will remain unchanged as compared to that in the original number?

Ans
✗ 1. Four
✗ 2. One
✗ 3. Three
✓ 4. Two

Question ID : **441009350840**
Option 1 ID : **4410091369725**
Option 2 ID : **4410091369722**
Option 3 ID : **4410091369724**
Option 4 ID : **4410091369723**

Q.12 If '+' means '÷', '–' means '×', '×' means '–', and '÷' means '+', then what will come in place of the question mark (?) in the following equation?

210 × 425 + 17 – 4 ÷ 130 = ?

Ans
✓ 1. 240
✗ 2. 200
✗ 3. 210
✗ 4. 250

Question ID : **441009350912**
Option 1 ID : **4410091370011**
Option 2 ID : **4410091370010**
Option 3 ID : **4410091370013**
Option 4 ID : **4410091370012**

Q.13 In the following series, only one letter-cluster is incorrect. Select the INCORRECT letter-cluster.

VTS, RPO, LJI, HGE

Ans
✗ 1. VTS
✗ 2. LJI
✓ 3. HGE
✗ 4. RPO

Question ID : **441009351803**
Option 1 ID : **4410091373569**
Option 2 ID : **4410091373567**
Option 3 ID : **4410091373566**
Option 4 ID : **4410091373568**

QuickSarkari.com | WhatsApp Channel | Telegram: t.me/quick_sarkari

Q.14 A statement is given followed by two conclusions. Identify which of the given conclusions is/are true based on the given statement.

Statement:
J = N ≤ P > Q ≥ T

Conclusions:
1. N ≤ Q
2. J < P

Ans
✔ 1. Neither conclusion 1 nor 2 is true.
✘ 2. Only conclusion 1 is true.
✘ 3. Only conclusion 2 is true.
✘ 4. Both conclusions 1 and 2 are true.

Question ID : **441009351350**
Option 1 ID : **4410091371765**
Option 2 ID : **4410091371762**
Option 3 ID : **4410091371763**
Option 4 ID : **4410091371764**

Q.15 Which of the given numbers will replace the question mark (?) in the following series?

128, 133, 136, 141, 144, 149, ?

Ans
✘ 1. 155
✘ 2. 153
✘ 3. 157
✔ 4. 152

Question ID : **441009350936**
Option 1 ID : **4410091370106**
Option 2 ID : **4410091370108**
Option 3 ID : **4410091370109**
Option 4 ID : **4410091370107**

Q.16 Based on the English alphabetical order, three of the following four letter-cluster pairs are alike in a certain way and thus form a group. Which letter-cluster pair DOES NOT belong to that group?
(Note: The odd man out is not based on the number of consonants/vowels or their position in the letter cluster.)

Ans
✘ 1. EH-YB
✘ 2. BE-VY
✔ 3. QW-CI
✘ 4. LO-FI

Question ID : **441009351572**
Option 1 ID : **4410091372652**
Option 2 ID : **4410091372650**
Option 3 ID : **4410091372653**
Option 4 ID : **4410091372651**

QuickSarkari.com | WhatsApp Channel | Telegram: t.me/quick_sarkari

Q.17 In the following number-pairs, the second number is obtained by performing certain mathematical operation(s) on the first number. Which numbers should replace X and Y, so that the pattern followed by the two numbers on the left side of :: is the same as that on the right side of ::?
(NOTE: Operations should be performed on the whole numbers, without breaking down the numbers into their constituent digits. E.g. 13 – Operations on 13 such as adding/subtracting/multiplying to 13 can be performed. Breaking down 13 into 1 and 3 and then performing mathematical operations on 1 and 3 is not allowed.)

X : 38 :: 9 : Y

Ans
✔ 1. X = 6, Y = 83
✘ 2. X = 6, Y = 81
✘ 3. X = 7, Y = 83
✘ 4. X = 4, Y = 82

Question ID : **441009350869**
Option 1 ID : **4410091369838**
Option 2 ID : **4410091369839**
Option 3 ID : **4410091369840**
Option 4 ID : **4410091369841**

Q.18 Two statements are given followed by two conclusions. Identify which of the given conclusions is/are true based on the following statement.

Statements:
= @, α = β, @ < $, # > α

Conclusions:
I. @ > β
II. α < @

Ans
✔ 1. Both statements I and II are true.
✘ 2. Only statement I is true.
✘ 3. Only statement II is true.
✘ 4. Neither statement I nor II is true.

Question ID : **441009351777**
Option 1 ID : **4410091373473**
Option 2 ID : **4410091373470**
Option 3 ID : **4410091373471**
Option 4 ID : **4410091373472**

QuickSarkari.com | WhatsApp Channel | Telegram: t.me/quick_sarkari

Q.19 In the following number pairs, the second number is obtained by applying certain mathematical operations to the first number. Which numbers should replace X and Y so that the pattern followed by the two numbers on the left side of :: is same as that on the right side of ::?

(Note: Operations should be performed on the whole numbers, without breaking down the numbers into their constituent digits. E.g., 13 – Operations on 13 such as adding/subtracting/multiplying to 13 can be performed. Breaking down 13 into 1 and 3 and then performing mathematical operations on 1 and 3 is not allowed.)

X : 105 :: 21 : Y

Ans
1. X = 15, Y = 155
2. X = 15, Y = 147
3. X = 18, Y = 147
4. X = 17, Y = 147

Question ID : **441009350799**
Option 1 ID : **4410091369559**
Option 2 ID : **4410091369558**
Option 3 ID : **4410091369560**
Option 4 ID : **4410091369561**

Q.20 Select the number from among the given options that can replace the question mark (?) in the following series.

18, 41, 66, 93, ?

Ans
1. 122
2. 123
3. 121
4. 120

Question ID : **441009350930**
Option 1 ID : **4410091370084**
Option 2 ID : **4410091370083**
Option 3 ID : **4410091370085**
Option 4 ID : **4410091370082**

Section : **General Awareness**

Q.1 Which of the following is the primary objective of the Pradhan Mantri Gati Shakti Plan?

Ans
1. To promote digital literacy across rural areas
2. To provide direct financial assistance to small-scale industries
3. To enhance multimodal connectivity and improve infrastructure efficiency
4. To develop housing for the urban poor

Question ID : **441009394111**
Option 1 ID : **4410091541940**
Option 2 ID : **4410091541939**
Option 3 ID : **4410091541938**
Option 4 ID : **4410091541937**

QuickSarkari.com | WhatsApp Channel | Telegram: t.me/quick_sarkari

Q.2 1820 के दशक में किस शिक्षक के छात्रों ने परंपरा और रीति-रिवाजों पर हमला किया, महिलाओं के लिए शिक्षा की मांग की, तथा विचार और अभिव्यक्ति की स्वतंत्रता के लिए अभियान चलाया?

Ans
✔ 1. हेनरी लुई विवियन डिरोजिओ (Henry Louis Vivian Derozio)
✘ 2. रिचर्ड वेलेस्ली (Richard Wellesley)
✘ 3. जेम्स जोनाथन (James Jonathan)
✘ 4. थॉमस मैकाले (Thomas Macauley)

Question ID : **441009393499**
Option 1 ID : **4410091539490**
Option 2 ID : **4410091539491**
Option 3 ID : **4410091539489**
Option 4 ID : **4410091539492**

Q.3 India secured which position in the overall medal standings at the Asian Athletics Championships 2025 held in Gumi, Republic of Korea?

Ans
✔ 1. Second
✘ 2. First
✘ 3. Fourth
✘ 4. Third

Question ID : **441009393902**
Option 1 ID : **4410091541102**
Option 2 ID : **4410091541101**
Option 3 ID : **4410091541104**
Option 4 ID : **4410091541103**

Q.4 What is the name of the global initiative launched by the Morarji Desai National Institute of Yoga (MDNIY) to celebrate international unity and wellness through yoga on the occasion of International Day of Yoga 2025?

Ans
✘ 1. Global Yoga Collaboration
✔ 2. Yoga Bandhan
✘ 3. Yoga Connect
✘ 4. Yoga for Unity

Question ID : **441009393916**
Option 1 ID : **4410091541160**
Option 2 ID : **4410091541159**
Option 3 ID : **4410091541157**
Option 4 ID : **4410091541158**

Q.5 Which sector in India is the largest employer of labour?

Ans
✘ 1. Healthcare
✔ 2. Agriculture
✘ 3. Manufacturing
✘ 4. Information Technology (IT)

Question ID : **441009394180**
Option 1 ID : **4410091542216**
Option 2 ID : **4410091542213**
Option 3 ID : **4410091542214**
Option 4 ID : **4410091542215**

Q.6 Which asteroid was named after the Indian scientist Prof. Jayant Murthy by the International Astronomical Union (IAU) on 18 March 2024?

Ans
✗ 1. 2000 LJ27
✗ 2. 2009 CD4
✗ 3. 2006 VP32
✓ 4. 2005 EX296

Question ID : **441009394049**
Option 1 ID : **4410091541691**
Option 2 ID : **4410091541692**
Option 3 ID : **4410091541689**
Option 4 ID : **4410091541690**

Q.7 In which of the following years was the All-India Muslim League formed?

Ans
✗ 1. 1905
✗ 2. 1919
✗ 3. 1927
✓ 4. 1906

Question ID : **441009393542**
Option 1 ID : **4410091539661**
Option 2 ID : **4410091539663**
Option 3 ID : **4410091539664**
Option 4 ID : **4410091539662**

Q.8 India's U-19 football team won the SAFF U-19 Championship 2025 by defeating which country in the penalty shootout?

Ans
✗ 1. Sri Lanka
✓ 2. Bangladesh
✗ 3. Nepal
✗ 4. Pakistan

Question ID : **441009393899**
Option 1 ID : **4410091541091**
Option 2 ID : **4410091541090**
Option 3 ID : **4410091541089**
Option 4 ID : **4410091541092**

Q.9 Which of the following platforms was launched by Union Minister Piyush Goyal at the Bharat Climate Forum 2025 in New Delhi?

Ans
✗ 1. Bima Sugam
✓ 2. Bharat Cleantech Manufacturing Platform
✗ 3. Intra Circle Roaming (ICR)
✗ 4. Sanchar Saathi Mobile App

Question ID : **441009393785**
Option 1 ID : **4410091540636**
Option 2 ID : **4410091540635**
Option 3 ID : **4410091540633**
Option 4 ID : **4410091540634**

Q.10 Where is 'Humayun's Tomb' located in India?

Ans
✗ 1. Mumbai
✗ 2. Agra
✓ 3. Delhi
✗ 4. Jaipur

Question ID : **441009398815**
Option 1 ID : **4410091560714**
Option 2 ID : **4410091560715**
Option 3 ID : **4410091560716**
Option 4 ID : **4410091560717**

Q.11 Who among the following was the founder of the Indian National Congress?

Ans
✓ 1. AO Hume
✗ 2. Jawaharlal Nehru
✗ 3. Sardar Patel
✗ 4. Mahatma Gandhi

Question ID : **441009393543**
Option 1 ID : **4410091539666**
Option 2 ID : **4410091539667**
Option 3 ID : **4410091539665**
Option 4 ID : **4410091539668**

Q.12 Where is the famous Mukteswara temple located in India?

Ans
✓ 1. Bhubaneswar
✗ 2. Vijayawada
✗ 3. Warangal
✗ 4. Kanchipuram

Question ID : **441009398814**
Option 1 ID : **4410091560711**
Option 2 ID : **4410091560712**
Option 3 ID : **4410091560713**
Option 4 ID : **4410091560710**

Q.13 Which Indian physicist from the University of Manchester received the 2024 Blavatnik Prize for developing novel membranes based on two-dimensional (2D) materials?

Ans
✗ 1. Ashoke Sen
✗ 2. Sandip Chakrabarti
✓ 3. Rahul R Nair
✗ 4. Tanmay Bharat

Question ID : **441009394053**
Option 1 ID : **4410091541705**
Option 2 ID : **4410091541706**
Option 3 ID : **4410091541708**
Option 4 ID : **4410091541707**

QuickSarkari.com | WhatsApp Channel | Telegram: t.me/quick_sarkari

Q.14 In 2025, President Droupadi Murmu appointed which of the following judges as the Chief Justice of the Manipur High Court under Article 217(1) of the Constitution?

Ans
✔ 1. Justice Kempaiah Somashekar
✘ 2. Justice Akil Kureshi
✘ 3. Justice KS Jhaveri
✘ 4. Justice Rakesh Kumar

Question ID : **441009393870**
Option 1 ID : **4410091540975**
Option 2 ID : **4410091540973**
Option 3 ID : **4410091540974**
Option 4 ID : **4410091540976**

Q.15 Which Government Scheme aims to provide employment opportunities to rural households in India?

Ans
✘ 1. National Rural Health Mission (NRHM)
✘ 2. Make in India
✔ 3. Mahatma Gandhi National Rural Employment Guarantee Act (MGNREGA)
✘ 4. Swachh Bharat Abhiyan

Question ID : **441009394179**
Option 1 ID : **4410091542212**
Option 2 ID : **4410091542210**
Option 3 ID : **4410091542211**
Option 4 ID : **4410091542209**

Q.16 Which type of cost represents the additional cost incurred by producing one more unit of output?

Ans
✘ 1. Total cost
✘ 2. Average cost
✘ 3. Variable cost
✔ 4. Marginal cost

Question ID : **441009394177**
Option 1 ID : **4410091542202**
Option 2 ID : **4410091542201**
Option 3 ID : **4410091542204**
Option 4 ID : **4410091542203**

Q.17 On which date every year is the sacrifice of Rani Laxmibai of Jhansi remembered?

Ans
✘ 1. 10th March
✘ 2. 19th August
✘ 3. 31st October
✔ 4. 18th June

Question ID : **441009393518**
Option 1 ID : **4410091539565**
Option 2 ID : **4410091539567**
Option 3 ID : **4410091539568**
Option 4 ID : **4410091539566**

Q.18 उत्पादन में नियत लागत का उदाहरण निम्नलिखित में से क्या है?

Ans ✔ 1. कारखाने का किराया

✘ 2. कच्चा माल

✘ 3. बिजली के बिल

✘ 4. श्रम मजदूरी

Question ID : **441009394121**
Option 1 ID : **4410091541979**
Option 2 ID : **4410091541977**
Option 3 ID : **4410091541980**
Option 4 ID : **4410091541978**

Q.19 Which team was declared 'National Team of the Year' at the Sportstar Aces Awards in February 2025?

Ans ✘ 1. Indian Men's Hockey Team

✔ 2. Indian Men's and Women's Chess Teams

✘ 3. Indian Kabaddi Team

✘ 4. Indian Men's Cricket Team

Question ID : **441009393961**
Option 1 ID : **4410091541340**
Option 2 ID : **4410091541338**
Option 3 ID : **4410091541339**
Option 4 ID : **4410091541337**

Q.20 What adjustment is made to convert Gross Domestic Product at Market Prices into Gross Domestic Product at Factor Cost?

Ans ✔ 1. Subtract Net Indirect Taxes and add subsidies.

✘ 2. Subtract Personal Income Tax.

✘ 3. Add Net Factor Income from Abroad.

✘ 4. Add Consumption of Fixed Capital.

Question ID : **441009394206**
Option 1 ID : **4410091542318**
Option 2 ID : **4410091542320**
Option 3 ID : **4410091542317**
Option 4 ID : **4410091542319**

Section : **General Awareness1**

QuickSarkari.com | WhatsApp Channel | Telegram: t.me/quick_sarkari

Q.1 निम्नलिखित में से किसने 1839 में तत्त्वबोधिनी सभा की स्थापना की?

Ans
✗ 1. राजा राम मोहन राय
✗ 2. ईश्वर चंद्र विद्यासागर
✓ 3. देवेंद्रनाथ टैगोर
✗ 4. राधाकांत देब

Question ID : **441009393482**
Option 1 ID : **4410091539422**
Option 2 ID : **4410091539421**
Option 3 ID : **4410091539424**
Option 4 ID : **4410091539423**

Q.2 With reference to Pongal, which of the given statements is/are correct?

a) Pongal is the harvest festival.
b) Pongal is also the name of a dish.

Ans
✗ 1. Only b
✓ 2. Both a and b
✗ 3. Only a
✗ 4. Neither a nor b

Question ID : **441009398876**
Option 1 ID : **4410091560959**
Option 2 ID : **4410091560960**
Option 3 ID : **4410091560958**
Option 4 ID : **4410091560961**

Q.3 Which of the following is NOT a writ given in Article 32 of the Indian Constitution?

Ans
✗ 1. Quo warranto
✗ 2. Certiorari
✗ 3. Prohibition
✓ 4. Injunction

Question ID : **441009393641**
Option 1 ID : **4410091540058**
Option 2 ID : **4410091540060**
Option 3 ID : **4410091540059**
Option 4 ID : **4410091540057**

Q.4 Who appoints the Chief Justice of India?

Ans
✓ 1. The President of India
✗ 2. The Parliament
✗ 3. The Lok Sabha Speaker
✗ 4. The Prime Minister

Question ID : **441009393574**
Option 1 ID : **4410091539792**
Option 2 ID : **4410091539790**
Option 3 ID : **4410091539791**
Option 4 ID : **4410091539789**

QuickSarkari.com | WhatsApp Channel | Telegram: t.me/quick_sarkari

Q.5 किस राज्य में राभा समुदाय अच्छी फसल के लिए 'बैखो' त्योहार मनाता है?

Ans
✗ 1. ओडिशा
✗ 2. झारखंड
✗ 3. हरियाणा
✓ 4. असम

Question ID : **441009398871**
Option 1 ID : **4410091560940**
Option 2 ID : **4410091560941**
Option 3 ID : **4410091560939**
Option 4 ID : **4410091560938**

Q.6 Which of the following is NOT a salient feature of the Constitution of India?

Ans
✗ 1. Parliamentary form of government
✓ 2. Separation of powers with rigid checks and balance
✗ 3. Fundamental Rights
✗ 4. Directive Principles of State Policy

Question ID : **441009393728**
Option 1 ID : **4410091540405**
Option 2 ID : **4410091540406**
Option 3 ID : **4410091540408**
Option 4 ID : **4410091540407**

Q.7 In the presence of which of the following solutions does onion paste lose its smell and become completely odourless?

Ans
✓ 1. NaOH
✗ 2. HBr
✗ 3. H_2SO_4
✗ 4. $CaCO_3$

Question ID : **441009398989**
Option 1 ID : **4410091561411**
Option 2 ID : **4410091561412**
Option 3 ID : **4410091561410**
Option 4 ID : **4410091561413**

Q.8 उपभोग से पहले दालों को अंकुरित करने का प्राथमिक कार्य (primary function) क्या है?

Ans
✓ 1. पाच्यता में सुधार और पोषण मान में वृद्धि करना
✗ 2. दीर्घकालिक उपयोग के लिए शेल्फ लाइफ में वृद्धि करना
✗ 3. संतुलित आहार बनाने के लिए दालों की कैलोरी मात्रा को कम करना
✗ 4. सभी पोषणज-विरोधी कारकों को पूरी तरह से समाप्त करना

Question ID : **441009398927**
Option 1 ID : **4410091561163**
Option 2 ID : **4410091561164**
Option 3 ID : **4410091561162**
Option 4 ID : **4410091561165**

QuickSarkari.com | WhatsApp Channel | Telegram: t.me/quick_sarkari

Q.9 'Khajuraho Dance Festival' is hosted in which of the following districts of Madhya Pradesh?

Ans
✗ 1. Jabalpur
✗ 2. Rajgarh
✗ 3. Indore
✓ 4. Chhatarpur

Question ID : **441009398874**
Option 1 ID : **4410091560950**
Option 2 ID : **4410091560952**
Option 3 ID : **4410091560951**
Option 4 ID : **4410091560953**

Q.10 The flexibility of the plasma membrane is because it is made up of _____.

Ans
✗ 1. monosaccharides and ions
✗ 2. polysaccharides and monosaccharides
✓ 3. proteins and lipids
✗ 4. cellulose

Question ID : **441009398980**
Option 1 ID : **4410091561375**
Option 2 ID : **4410091561377**
Option 3 ID : **4410091561376**
Option 4 ID : **4410091561374**

Q.11 Which of the following crops is grown in the Rabi season in North India?

Ans
✓ 1. Wheat
✗ 2. Jute
✗ 3. Groundnut
✗ 4. Cotton

Question ID : **441009399193**
Option 1 ID : **4410091562227**
Option 2 ID : **4410091562228**
Option 3 ID : **4410091562229**
Option 4 ID : **4410091562226**

Q.12 Which of the following is a feature of the 'Fundamental Rights'?

Ans
✗ 1. Non-justifiable
✓ 2. Justifiable
✗ 3. Rigid
✗ 4. Flexible

Question ID : **441009393722**
Option 1 ID : **4410091540382**
Option 2 ID : **4410091540381**
Option 3 ID : **4410091540384**
Option 4 ID : **4410091540383**

QuickSarkari.com | WhatsApp Channel | Telegram: t.me/quick_sarkari

Q.13 हिमालय की सबसे पूर्वी सीमा का निर्धारण करने वाली नदी, _____ नदी है।

Ans
1. गंगा
2. काली
3. ब्रह्मपुत्र
4. घाघरा

Question ID : **441009399133**
Option 1 ID : **4410091561987**
Option 2 ID : **4410091561988**
Option 3 ID : **4410091561986**
Option 4 ID : **4410091561989**

Q.14 Pick the ODD one out with respect to primary meristem.

Ans
1. Interfascicular cambium
2. Cylindrical meristem
3. Lateral meristem
4. Intercalary meristem

Question ID : **441009399020**
Option 1 ID : **4410091561534**
Option 2 ID : **4410091561536**
Option 3 ID : **4410091561537**
Option 4 ID : **4410091561535**

Q.15 तराई क्षेत्र, भौगोलिक दृष्टि से _____ के लिए जाना जाता है।

Ans
1. अपनी उर्वर मृदा और गहन कृषि
2. अपने घने वनों और विविध वन्यजीव
3. अपनी उच्च ऊंचाई और पर्वतीय भू-भाग
4. अपनी शुष्क जलवायु और विरल वनस्पति

Question ID : **441009399132**
Option 1 ID : **4410091561984**
Option 2 ID : **4410091561985**
Option 3 ID : **4410091561983**
Option 4 ID : **4410091561982**

Q.16 भारत में 'कर्तन दहन प्रणाली (slash and burn)' कृषि के संदर्भ में, निम्नलिखित में से कौन-सा युग्म गलत है?

Ans
1. मध्य प्रदेश - बेवर या दहिया
2. राजस्थान - खिल या कुरुवा
3. ओडिशा - कोमान या ब्रिंगा
4. आंध्र प्रदेश - पोडू या पेंदा

Question ID : **441009399192**
Option 1 ID : **4410091562222**
Option 2 ID : **4410091562224**
Option 3 ID : **4410091562225**
Option 4 ID : **4410091562223**

Q.17 Which of the following festivals is celebrated thrice in a year to mark the three important stages of agricultural operation in the state of Assam?

Ans
✔ 1. Bihu
✘ 2. Pongal
✘ 3. Bheldiya
✘ 4. Doljtra

Question ID : **441009398899**
Option 1 ID : **4410091561050**
Option 2 ID : **4410091561052**
Option 3 ID : **4410091561053**
Option 4 ID : **4410091561051**

Q.18 As per Census 2011, which of the following cities has the highest literacy rate in India?

Ans
✘ 1. Thrissur
✔ 2. Aizawl
✘ 3. Kochi
✘ 4. Kozhikode

Question ID : **441009399221**
Option 1 ID : **4410091562339**
Option 2 ID : **4410091562340**
Option 3 ID : **4410091562338**
Option 4 ID : **4410091562341**

Q.19 Which of the following is the causative agent of tuberculosis?

Ans
✘ 1. Staphylococcus tuberculosis
✔ 2. Mycobacterium tuberculosis
✘ 3. Pseudomonas aeruginosa
✘ 4. Streptococcus pyogenes

Question ID : **441009398963**
Option 1 ID : **4410091561306**
Option 2 ID : **4410091561307**
Option 3 ID : **4410091561309**
Option 4 ID : **4410091561308**

Q.20 Who has the right to summon and prorogue the State Legislature?

Ans
✘ 1. Chief Justice of High Court
✘ 2. President of India
✘ 3. Chief Minister
✔ 4. Governor

Question ID : **441009393646**
Option 1 ID : **4410091540080**
Option 2 ID : **4410091540078**
Option 3 ID : **4410091540079**
Option 4 ID : **4410091540077**

Section : **Arithmetical and Numerical Ability**

Q.1 What is the minimum value that must be assigned to A so that the 8-digit number 535A6708 is divisible by 3?

Ans
✗ 1. 3
✗ 2. 1
✓ 3. 2
✗ 4. 4

Question ID : **441009373805**
Option 1 ID : **4410091460808**
Option 2 ID : **4410091460807**
Option 3 ID : **4410091460805**
Option 4 ID : **4410091460806**

Q.2 Convert $2.1\overline{142857}$ into a fraction.

Ans
✓ 1. $\frac{74}{35}$
✗ 2. $\frac{73}{35}$
✗ 3. $\frac{15}{7}$
✗ 4. $\frac{72}{35}$

Question ID : **441009374496**
Option 1 ID : **4410091463569**
Option 2 ID : **4410091463571**
Option 3 ID : **4410091463570**
Option 4 ID : **4410091463572**

Q.3 The average weight of a family of five members (in kg) whose weights are 40 kg, 49 kg, 56 kg, 64 kg and 39 kg is:

Ans
✗ 1. 50.6
✓ 2. 49.6
✗ 3. 51.6
✗ 4. 48.6

Question ID : **441009374357**
Option 1 ID : **4410091463014**
Option 2 ID : **4410091463013**
Option 3 ID : **4410091463016**
Option 4 ID : **4410091463015**

QuickSarkari.com | WhatsApp Channel | Telegram: t.me/quick_sarkari

Q.4 A vendor sold 10 chocolates for ₹1, making a profit of 90%. How many chocolates did he buy for ₹1?

Ans
✗ 1. 25
✗ 2. 23
✗ 3. 21
✓ 4. 19

Question ID : **441009374220**
Option 1 ID : **4410091462468**
Option 2 ID : **4410091462467**
Option 3 ID : **4410091462466**
Option 4 ID : **4410091462465**

Q.5 A vendor sold 10 chocolates for ₹1, making a profit of 100%. How many chocolates did he buy for ₹1?

Ans
✓ 1. 20
✗ 2. 22
✗ 3. 26
✗ 4. 24

Question ID : **441009374219**
Option 1 ID : **4410091462461**
Option 2 ID : **4410091462462**
Option 3 ID : **4410091462464**
Option 4 ID : **4410091462463**

Q.6 A person borrowed ₹15,000 on simple interest and paid interest of ₹6,300 after 3 years. Find the rate of interest per annum.

Ans
✗ 1. 15%
✓ 2. 14%
✗ 3. 13%
✗ 4. 12%

Question ID : **441009374370**
Option 1 ID : **4410091463068**
Option 2 ID : **4410091463065**
Option 3 ID : **4410091463066**
Option 4 ID : **4410091463067**

Q.7 David's salary is ₹10,000 per month. He spends ₹5,500 on house rent, ₹3,000 on bills and the rest of the amount is his monthly savings. Find his savings(in ₹) in a year, if in the month of his birthday he spent his complete monthly savings for his birthday celebration.

Ans
✗ 1. 13,500
✗ 2. 18,000
✓ 3. 16,500
✗ 4. 15,000

Question ID : **441009374240**
Option 1 ID : **4410091462548**
Option 2 ID : **4410091462546**
Option 3 ID : **4410091462545**
Option 4 ID : **4410091462547**

Q.8 Find the compound interest on ₹4,800 at the rate of 5% per annum for two years, compounded annually.

Ans
✗ 1. ₹472
✗ 2. ₹424
✗ 3. ₹429
✓ 4. ₹492

Question ID : **441009374444**
Option 1 ID : **4410091463363**
Option 2 ID : **4410091463361**
Option 3 ID : **4410091463362**
Option 4 ID : **4410091463364**

Q.9 The average weight of a family of five members (in kg) whose weights are 40 kg, 49 kg, 56 kg, 64 kg and 37 kg is:

Ans
✗ 1. 51.2
✗ 2. 50.2
✗ 3. 48.2
✓ 4. 49.2

Question ID : **441009374359**
Option 1 ID : **4410091463024**
Option 2 ID : **4410091463022**
Option 3 ID : **4410091463023**
Option 4 ID : **4410091463021**

Q.10 A sum of money doubles itself at compound interest in 10 years, compounded annually. In how many years will it become four times, if the interest is compounded annually?

Ans
✗ 1. 15
✓ 2. 20
✗ 3. 30
✗ 4. 25

Question ID : **441009374442**
Option 1 ID : **4410091463355**
Option 2 ID : **4410091463356**
Option 3 ID : **4410091463353**
Option 4 ID : **4410091463354**

Q.11 45 का 60%, 15 के $\frac{1}{5}$ से कितना अधिक है?

Ans
✗ 1. 18
✗ 2. 22
✗ 3. 21
✓ 4. 24

Question ID : **441009374319**
Option 1 ID : **4410091462863**
Option 2 ID : **4410091462864**
Option 3 ID : **4410091462862**
Option 4 ID : **4410091462861**

Q.12 The average (rounded off to two decimal place) of the squares of the first 27 natural numbers is:

Ans
✗ 1. 258.67
✗ 2. 257.67
✓ 3. 256.67
✗ 4. 255.67

Question ID : **441009374290**
Option 1 ID : **4410091462748**
Option 2 ID : **4410091462746**
Option 3 ID : **4410091462745**
Option 4 ID : **4410091462747**

Q.13 Study the given table and answer the question that follows.
The given table shows the number of the headphones that were sold by the showrooms P, Q, R and S from 2017 to 2022.

Year	P	Q	R	S
2017	184	143	189	270
2018	270	184	195	220
2019	210	200	220	200
2020	280	300	280	320
2021	270	240	300	350
2022	360	280	340	380

What was the average number of headphones sold per showroom in the year 2020?

Ans
✓ 1. 295
✗ 2. 258
✗ 3. 205
✗ 4. 228

Question ID : **441009374324**
Option 1 ID : **4410091462884**
Option 2 ID : **4410091462883**
Option 3 ID : **4410091462881**
Option 4 ID : **4410091462882**

Q.14 Amit's income in 2019 was ₹22,000. He gets an increment of 10% every year. What was his income (in ₹) in 2021?

Ans
✗ 1. 24,200
✓ 2. 26,620
✗ 3. 26,400
✗ 4. 22,000

Question ID : **441009374263**
Option 1 ID : **4410091462638**
Option 2 ID : **4410091462637**
Option 3 ID : **4410091462639**
Option 4 ID : **4410091462640**

QuickSarkari.com | WhatsApp Channel | Telegram: t.me/quick_sarkari

Q.15 The number of prime numbers lying between 457 and 469, both inclusive, is:

Ans
1. 1
2. 4
3. 5
4. 6

Question ID : **441009374089**
Option 1 ID : **4410091461943**
Option 2 ID : **4410091461941**
Option 3 ID : **4410091461942**
Option 4 ID : **4410091461944**

Q.16 Sam invested a certain amount of money which doubled itself in 8 years at simple interest. How many years will it take for the money to become five times at the same rate of simple interest.

Ans
1. 35
2. 30
3. 32
4. 28

Question ID : **441009374373**
Option 1 ID : **4410091463078**
Option 2 ID : **4410091463079**
Option 3 ID : **4410091463080**
Option 4 ID : **4410091463077**

Q.17 1550 people visited an exhibition on Tuesday, whereas 1860 people visited it on Wednesday. The percentage increase in the number of people visiting the exhibition on Wednesday over those who visited it on Tuesday was _____%.

Ans
1. 21
2. 20
3. 17.67
4. 16.67

Question ID : **441009374279**
Option 1 ID : **4410091462702**
Option 2 ID : **4410091462701**
Option 3 ID : **4410091462704**
Option 4 ID : **4410091462703**

QuickSarkari.com | WhatsApp Channel | Telegram: t.me/quick_sarkari

Q.18 The given table shows the total number of students studying in various colleges (A, B, C and D) over six years from 2018 to 2023. Study the table and answer the question that follows.

Year	College			
	A	B	C	D
2018	325	410	210	320
2019	270	380	260	340
2020	420	440	310	410
2021	360	260	250	260
2022	275	350	340	360
2023	350	360	230	310

If the ratio of the total number of boys and the total number of girls who studied in College B during these six years is given as 2 : 3, and the same ratio for College D is given as 3 : 2, what is the ratio of the total number of boys who studied in College B during these six years to the total number of girls who studied in College D during the same period?

Ans
✗ 1. 12 : 13
✗ 2. 11 : 12
✗ 3. 10 : 11
✓ 4. 11 : 10

Question ID : **441009374328**
Option 1 ID : **4410091462897**
Option 2 ID : **4410091462898**
Option 3 ID : **4410091462899**
Option 4 ID : **4410091462900**

Q.19 Simplify the given expression.

[(2 × 3 + 7) ÷ 4]

Ans
✗ 1. 2.93
✓ 2. 3.25
✗ 3. 4.15
✗ 4. 2.17

Question ID : **441009374483**
Option 1 ID : **4410091463520**
Option 2 ID : **4410091463519**
Option 3 ID : **4410091463518**
Option 4 ID : **4410091463517**

QuickSarkari.com | WhatsApp Channel | Telegram: t.me/quick_sarkari

Q.20 The average of the squares of the first 26 natural numbers is:

Ans
✗ 1. 239.5
✗ 2. 237.5
✗ 3. 240.5
✓ 4. 238.5

Question ID : **441009374291**
Option 1 ID : **4410091462750**
Option 2 ID : **4410091462751**
Option 3 ID : **4410091462752**
Option 4 ID : **4410091462749**

Section : **Arithmetical and Numerical Ability1**

Q.1 A person covers a certain distance in 4 hours at a speed of 6 km/hr, and then covers another distance in 10 hours at a speed of 2 km/hr. Find his average speed (in km/hr) for the entire journey.

Ans
✓ 1. $3\frac{1}{7}$
✗ 2. $4\frac{1}{7}$
✗ 3. $5\frac{1}{7}$
✗ 4. $2\frac{1}{7}$

Question ID : **441009373986**
Option 1 ID : **4410091461529**
Option 2 ID : **4410091461532**
Option 3 ID : **4410091461531**
Option 4 ID : **4410091461530**

Q.2 P, Q and R enter into a partnership and their shares are in the ratio $\frac{1}{4}$:

Q withdraws one – fourth of his capital and after another 9 months, a

What is Q's share (in ₹) in the profit?

Ans
✓ 1. 585
✗ 2. 739
✗ 3. 615
✗ 4. 676

Question ID : **441009374177**
Option 1 ID : **4410091462296**
Option 2 ID : **4410091462294**
Option 3 ID : **4410091462295**
Option 4 ID : **4410091462293**

QuickSarkari.com | WhatsApp Channel | Telegram: t.me/quick_sarkari

Q.3 The cost price of 30 articles is the same as the selling price of n articles. If the profit is 25%, then find the value of n.

Ans
✗ 1. 20
✓ 2. 24
✗ 3. 16
✗ 4. 19

Question ID : **441009374203**
Option 1 ID : **4410091462399**
Option 2 ID : **4410091462397**
Option 3 ID : **4410091462400**
Option 4 ID : **4410091462398**

Q.4 If the curved surface area of a cone is 4070 cm^2 and its diameter is 70 cm, then its slant height is (use π = 22/7):

Ans
✓ 1. 37 cm
✗ 2. 54 cm
✗ 3. 27 cm
✗ 4. 47 cm

Question ID : **441009374645**
Option 1 ID : **4410091464167**
Option 2 ID : **4410091464165**
Option 3 ID : **4410091464166**
Option 4 ID : **4410091464168**

Q.5 A contractor has to construct a park in 90 days. He initially employs 60 men. After 30 days, he realises that only one-fifth of the work has been completed. How many more men should he employ to complete the remaining work on time?

Ans
✗ 1. 120
✓ 2. 60
✗ 3. 75
✗ 4. 90

Question ID : **441009374459**
Option 1 ID : **4410091463421**
Option 2 ID : **4410091463422**
Option 3 ID : **4410091463424**
Option 4 ID : **4410091463423**

Q.6 Find the mean proportional of 18 and 128?

Ans
✗ 1. 45
✗ 2. 46
✗ 3. 47
✓ 4. 48

Question ID : **441009373822**
Option 1 ID : **4410091460875**
Option 2 ID : **4410091460874**
Option 3 ID : **4410091460876**
Option 4 ID : **4410091460873**

Q.7 If 21 , 63 , 81 , and y are in proportion, then the value of y is:

Ans
✗ 1. 238
✗ 2. 240
✗ 3. 246
✓ 4. 243

Question ID : **441009373937**
Option 1 ID : **4410091461334**
Option 2 ID : **4410091461336**
Option 3 ID : **4410091461335**
Option 4 ID : **4410091461333**

Q.8 Ribha, Ranu and Rupa can independently complete a piece of work in
If they work together, how much time will they take to complete that

Ans
✓ 1. $3\frac{3}{11}$ hours
✗ 2. $3\frac{2}{11}$ hours
✗ 3. $3\frac{1}{11}$ hours
✗ 4. $3\frac{4}{11}$ hours

Question ID : **441009374390**
Option 1 ID : **4410091463147**
Option 2 ID : **4410091463146**
Option 3 ID : **4410091463145**
Option 4 ID : **4410091463148**

Q.9 The speed of a car increases by 5 kms after every one hour. If the distance travelled in the first one hour was 42 kms, what was the total distance travelled in 10 hours?

Ans
✓ 1. 645 km
✗ 2. 638 km
✗ 3. 637 km
✗ 4. 642 km

Question ID : **441009373869**
Option 1 ID : **4410091461061**
Option 2 ID : **4410091461063**
Option 3 ID : **4410091461062**
Option 4 ID : **4410091461064**

QuickSarkari.com | WhatsApp Channel | Telegram: t.me/quick_sarkari

Q.10 The distance between two points on a map is 9 cm. The scale of the map is 1 : 678739. The actual distance (in km, rounded off to two decimal places) between the two points is:

Ans
✗ 1. 62.25
✗ 2. 56.88
✓ 3. 61.09
✗ 4. 64.81

Question ID : **441009373953**
Option 1 ID : **4410091461398**
Option 2 ID : **4410091461400**
Option 3 ID : **4410091461397**
Option 4 ID : **4410091461399**

Q.11 The marked price of an article is 50% more than its cost price. The article is sold for ₹1,200 after offering a discount of 20% on the marked price. Find the marked price of the article.

Ans
✗ 1. ₹1,400
✗ 2. ₹1,600
✗ 3. ₹2,000
✓ 4. ₹1,500

Question ID : **441009374204**
Option 1 ID : **4410091462404**
Option 2 ID : **4410091462402**
Option 3 ID : **4410091462401**
Option 4 ID : **4410091462403**

Q.12 If the lateral surface area of a cylinder is 112.4 cm^2 and its height is 32 cm, then find its volume. (Use π = 3.14 and round off to two decimal places.)

Ans
✗ 1. 41.56 cm^3
✓ 2. 31.43 cm^3
✗ 3. 74.15 cm^3
✗ 4. 20.06 cm^3

Question ID : **441009374563**
Option 1 ID : **4410091463840**
Option 2 ID : **4410091463837**
Option 3 ID : **4410091463839**
Option 4 ID : **4410091463838**

QuickSarkari.com | WhatsApp Channel | Telegram: t.me/quick_sarkari

Q.13 The surface area of a sphere is 64 π cm^2. The volume (cm^3) of the sphere is:

Ans
1. $\frac{274\ \pi}{3}$
2. $\frac{256\ \pi}{3}$
3. $\frac{338\ \pi}{3}$
4. $\frac{275\ \pi}{3}$

Question ID : **441009374590**
Option 1 ID : **4410091463947**
Option 2 ID : **4410091463945**
Option 3 ID : **4410091463946**
Option 4 ID : **4410091463948**

Q.14 It takes Pipes A and B working together 4 minutes to fill a tank. If Pipe A takes 6 minutes less than Pipe B to fill the tank individually, find the time Pipe B alone would take to fill the tank.

Ans
1. 11 minutes
2. 12 minutes
3. 14 minutes
4. 10 minutes

Question ID : **441009374389**
Option 1 ID : **4410091463142**
Option 2 ID : **4410091463143**
Option 3 ID : **4410091463144**
Option 4 ID : **4410091463141**

Q.15 A tap can fill a tank in 10 hours. After two-fifths of the tank is filled, three more identical taps are opened. What is the total time (in hours) taken to fill the tank completely?

Ans
1. 5.5
2. 5
3. 4.5
4. 4

Question ID : **441009374149**
Option 1 ID : **4410091462184**
Option 2 ID : **4410091462183**
Option 3 ID : **4410091462182**
Option 4 ID : **4410091462181**

QuickSarkari.com | WhatsApp Channel | Telegram: t.me/quick_sarkari

Q.16 When the selling price of a guitar is ₹19,000, the shopkeeper incurs a loss of 5%. What should be the selling price (in ₹) of that guitar so as to gain 25%?

Ans
✗ 1. ₹21,475
✓ 2. ₹25,000
✗ 3. ₹20,000
✗ 4. ₹21,575

Question ID : **441009374169**
Option 1 ID : **4410091462263**
Option 2 ID : **4410091462261**
Option 3 ID : **4410091462262**
Option 4 ID : **4410091462264**

Q.17 A rectangular water tank is 10 m high, 8 m long and 5 m wide. How many litres of water can it hold?

Ans
✗ 1. 400 litres
✓ 2. 4,00,000 litres
✗ 3. 40,000 litres
✗ 4. 4,000 litres

Question ID : **441009374634**
Option 1 ID : **4410091464121**
Option 2 ID : **4410091464122**
Option 3 ID : **4410091464124**
Option 4 ID : **4410091464123**

Q.18 Vijay buys mangoes at the rate of 3 kg for ₹15 and sells them at 5 kg for ₹50. To earn ₹180 as profit, how much quantity of mangoes (in kg) must he sell?

Ans
✗ 1. 38
✗ 2. 39
✗ 3. 37
✓ 4. 36

Question ID : **441009374162**
Option 1 ID : **4410091462235**
Option 2 ID : **4410091462236**
Option 3 ID : **4410091462234**
Option 4 ID : **4410091462233**

Q.19 A truck travels 81 km at the speed of 51 km/hr and the next 48 km at the speed of 8 km/hr. What is its average speed (in km/hr)?

Ans
✗ 1. 23
✓ 2. 17
✗ 3. 21
✗ 4. 11

Question ID : **441009374002**
Option 1 ID : **4410091461596**
Option 2 ID : **4410091461593**
Option 3 ID : **4410091461595**
Option 4 ID : **4410091461594**

Q.20 The speed of a car is 15 m/sec. The distance (in kilometres) travelled by the car in 3 hours and 50 minutes is:

Ans
✗ 1. 212
✓ 2. 207
✗ 3. 203
✗ 4. 211

Question ID : **441009374016**
Option 1 ID : **4410091461651**
Option 2 ID : **4410091461649**
Option 3 ID : **4410091461650**
Option 4 ID : **4410091461652**

Section : **Test of English Language and Comprehension**

Q.1 Sentences of a paragraph are given below in jumbled order. Arrange the sentences in the correct order to form a meaningful and coherent paragraph.

(A) Through these records, future generations learn about ancient societies.
(B) Archaeologists carefully study old tools, pottery, and writings.
(C) These discoveries reveal details of daily life, trade, and beliefs.
(D) Without such evidence, much of human history would remain a mystery.

Ans
✗ 1. CBDA
✗ 2. DCBA
✓ 3. BCAD
✗ 4. ABCD

Question ID : **441009941317**
Option 1 ID : **4410093718934**
Option 2 ID : **4410093718933**
Option 3 ID : **4410093718931**
Option 4 ID : **4410093718932**

Q.2 Parts of a sentence are given below in jumbled order. Arrange the parts in the correct order to form a meaningful sentence.

(P) who had been suffering from illness
(Q) the mother took care of her son
(R) and ensured he received proper treatment
(S) with great love and dedication

Ans
✗ 1. P - Q - R - S
✓ 2. Q - P - S - R
✗ 3. R - S- P - Q
✗ 4. S - Q - P - R

Question ID : **44100933354**
Option 1 ID : **441009132592**
Option 2 ID : **441009132593**
Option 3 ID : **441009132594**
Option 4 ID : **441009132595**

QuickSarkari.com | WhatsApp Channel | Telegram: t.me/quick_sarkari

Q.3 Select the most appropriate option to fill in the blank.

The _____ architecture of the cathedral left the tourists in awe.

Ans
✗ 1. most unique

✗ 2. more unique

✓ 3. unique

✗ 4. much more unique

Question ID : **441009349079**
Option 1 ID : **4410091362723**
Option 2 ID : **4410091362725**
Option 3 ID : **4410091362724**
Option 4 ID : **4410091362722**

Q.4 Identify the correct option to replace the highlighted text in the given sentence to make it grammatically correct.

He provided the most accurate explanation of the two.

Ans
✗ 1. very accurate

✗ 2. accurate

✗ 3. much accurate

✓ 4. more accurate

Question ID : **441009349059**
Option 1 ID : **4410091362642**
Option 2 ID : **4410091362644**
Option 3 ID : **4410091362643**
Option 4 ID : **4410091362645**

Q.5 Select the most appropriate option that rectifies the grammatical error(s) in the given sentence.

His marks are more higher than mine this term.

Ans
✗ 1. highest

✗ 2. much high

✗ 3. high

✓ 4. higher

Question ID : **441009349097**
Option 1 ID : **4410091362797**
Option 2 ID : **4410091362795**
Option 3 ID : **4410091362794**
Option 4 ID : **4410091362796**

Quick Sarkari

Q.6 Select the option that rectifies the incorrect adverb usage in the following sentence.

Adnan fortunately delivered his speech to the audience.

Ans
1. Adnan silently delivered his speech to the audience.
2. Adnan mysteriously delivered his speech to the audience.
3. Adnan confidently delivered his speech to the audience.
4. Adnan generously delivered his speech to the audience.

Question ID : **441009348983**
Option 1 ID : **4410091362341**
Option 2 ID : **4410091362340**
Option 3 ID : **4410091362338**
Option 4 ID : **4410091362339**

Q.7 Select the most appropriate option to fill in the blank.

If he _____ a little more careful, he wouldn't have made that mistake.

Ans
1. is
2. has been
3. had
4. were

Question ID : **441009349219**
Option 1 ID : **4410091363282**
Option 2 ID : **4410091363283**
Option 3 ID : **4410091363284**
Option 4 ID : **4410091363285**

Q.8 Select the most appropriate option to fill in the blank.

Marks will be deducted for a/an _____ answer.

Ans
1. wrong
2. ineffective
3. false
4. negative

Question ID : **441009349173**
Option 1 ID : **4410091363098**
Option 2 ID : **4410091363100**
Option 3 ID : **4410091363101**
Option 4 ID : **4410091363099**

QuickSarkari.com | WhatsApp Channel | Telegram: t.me/quick_sarkari

Q.9 Identify the correct option to replace the highlighted text in the given sentence to make it grammatically correct.

My house is more near to the market than yours.

Ans
✔ 1. nearer
✘ 2. much near
✘ 3. near
✘ 4. nearest

Question ID : **441009349057**
Option 1 ID : **4410091362636**
Option 2 ID : **4410091362635**
Option 3 ID : **4410091362634**
Option 4 ID : **4410091362637**

Q.10 Select the most appropriate article to fill in the blank. If no article is needed, select 'No article required'.

I have to dedicate _____ ample amount of time to study complex mathematical concepts to excel in competitive exams.

Ans
✘ 1. a
✘ 2. No article required
✔ 3. an
✘ 4. the

Question ID : **441009348895**
Option 1 ID : **4410091361986**
Option 2 ID : **4410091361989**
Option 3 ID : **4410091361987**
Option 4 ID : **4410091361988**

Q.11 Select the most appropriate option to fill in the blank.

A child holding _____ blue balloon ran cheerily across the playground.

Ans
✘ 1. an
✘ 2. No article required
✔ 3. a
✘ 4. the

Question ID : **441009348957**
Option 1 ID : **4410091362236**
Option 2 ID : **4410091362234**
Option 3 ID : **4410091362237**
Option 4 ID : **4410091362235**

QuickSarkari.com | WhatsApp Channel | Telegram: t.me/quick_sarkari

Q.12 Select the most appropriate option to fill in the blank.

The board of directors made a _____ decision that turned the company's fortunes around.

Ans
1. much unanimous
2. more unanimous
3. unanimous
4. most unanimous

Question ID : **441009349078**
Option 1 ID : **4410091362720**
Option 2 ID : **4410091362718**
Option 3 ID : **4410091362719**
Option 4 ID : **4410091362721**

Q.13 Select the option that will improve the highlighted part of the given sentence.

We took the much shorter possible route to avoid delay.

Ans
1. shorter
2. very short
3. most shortest
4. shortest

Question ID : **441009349056**
Option 1 ID : **4410091362632**
Option 2 ID : **4410091362630**
Option 3 ID : **4410091362631**
Option 4 ID : **4410091362633**

Q.14 The following sentence has been split into four segments. Identify the segment that contains a grammatical error.

They found / an interesting / article on / an internet.

Ans
1. an interesting
2. article on
3. an internet
4. They found

Question ID : **441009220377**
Option 1 ID : **441009864227**
Option 2 ID : **441009864228**
Option 3 ID : **441009864229**
Option 4 ID : **441009864226**

Q.15 Select the most appropriate article to fill in the blank. If no article is needed, select 'No article required'.

A constricted path through the deep jungle led to _____ ancient shrine blanketed in mystery.

Ans
✗ 1. a
✗ 2. No article required
✗ 3. the
✓ 4. an

Question ID : **441009348955**
Option 1 ID : **4410091362228**
Option 2 ID : **4410091362226**
Option 3 ID : **4410091362227**
Option 4 ID : **4410091362229**

Comprehension:

Read the given passage and answer the questions that follow.

During my stay at Ramanathapuram, my relationship with him grew beyond that of a teacher and pupil. In his company, I learnt that one could exercise enormous influence over the events of one's own life. Iyadurai Solomon used to say, "To succeed in life and achieve results, you must understand and master three mighty forces – desire, belief and expectation." Iyadurai Solomon, who later became a Reverend, taught me that before anything I wanted could happen, I had to desire it intensely and be absolutely certain it would happen. To take an example from my own life, I had been fascinated by the mysteries of the sky and the flight of birds from early childhood. I used to watch cranes and seagulls soar into fight and longed to fly. Simple provincial boy though I was, I was convinced that one day I, too, would soar up into the skies Indeed, I was the first child from Rameswaram to fly.

SubQuestion No : 16

Q.16 Who is Iyadurai Solomon to the narrator?

Ans
✗ 1. Pupil
✓ 2. Teacher
✗ 3. Uncle
✗ 4. Friend

Question ID : **441009349681**
Option 1 ID : **4410091365019**
Option 2 ID : **4410091365020**
Option 3 ID : **4410091365018**
Option 4 ID : **4410091365021**

QuickSarkari.com | WhatsApp Channel | Telegram: t.me/quick_sarkari

Comprehension:

Read the given passage and answer the questions that follow.

During my stay at Ramanathapuram, my relationship with him grew beyond that of a teacher and pupil. In his company, I learnt that one could exercise enormous influence over the events of one's own life. Iyadurai Solomon used to say, "To succeed in life and achieve results, you must understand and master three mighty forces – desire, belief and expectation." Iyadurai Solomon, who later became a Reverend, taught me that before anything I wanted could happen, I had to desire it intensely and be absolutely certain it would happen. To take an example from my own life, I had been fascinated by the mysteries of the sky and the flight of birds from early childhood. I used to watch cranes and seagulls soar into fight and longed to fly. Simple provincial boy though I was, I was convinced that one day I, too, would soar up into the skies Indeed, I was the first child from Rameswaram to fly.

SubQuestion No : 17

Q.17 The narrator was the first child from _____ to fly.

Ans

✔ 1. Rameswaram

✘ 2. Chennai

✘ 3. Coimbatore

✘ 4. Kanyakumari

Question ID : **441009349682**
Option 1 ID : **4410091365022**
Option 2 ID : **4410091365025**
Option 3 ID : **4410091365023**
Option 4 ID : **4410091365024**

Comprehension:

Read the given passage and answer the questions that follow.

During my stay at Ramanathapuram, my relationship with him grew beyond that of a teacher and pupil. In his company, I learnt that one could exercise enormous influence over the events of one's own life. Iyadurai Solomon used to say, "To succeed in life and achieve results, you must understand and master three mighty forces – desire, belief and expectation." Iyadurai Solomon, who later became a Reverend, taught me that before anything I wanted could happen, I had to desire it intensely and be absolutely certain it would happen. To take an example from my own life, I had been fascinated by the mysteries of the sky and the flight of birds from early childhood. I used to watch cranes and seagulls soar into fight and longed to fly. Simple provincial boy though I was, I was convinced that one day I, too, would soar up into the skies Indeed, I was the first child from Rameswaram to fly.

SubQuestion No : 18

Q.18 Select the most suitable title for the passage.

Ans

✘ 1. Strategies for Financial Investment

✘ 2. Historical Events and Their Impacts

✘ 3. A Philosophical Treatise on Human Emotions

✔ 4. A Journey of Desire, Belief and Expectation

Question ID : **441009349680**
Option 1 ID : **4410091365016**
Option 2 ID : **4410091365015**
Option 3 ID : **4410091365014**
Option 4 ID : **4410091365017**

Comprehension:

Read the given passage and answer the questions that follow.

During my stay at Ramanathapuram, my relationship with him grew beyond that of a teacher and pupil. In his company, I learnt that one could exercise enormous influence over the events of one's own life. Iyadurai Solomon used to say, "To succeed in life and achieve results, you must understand and master three mighty forces – desire, belief and expectation." Iyadurai Solomon, who later became a Reverend, taught me that before anything I wanted could happen, I had to desire it intensely and be absolutely certain it would happen. To take an example from my own life, I had been fascinated by the mysteries of the sky and the flight of birds from early childhood. I used to watch cranes and seagulls soar into fight and longed to fly. Simple provincial boy though I was, I was convinced that one day I, too, would soar up into the skies Indeed, I was the first child from Rameswaram to fly.

SubQuestion No : 19

Q.19 Select the most appropriate ANTONYM of the word 'enormous' as given in the passage.

Ans

✔ 1. Little

✘ 2. Grave

✘ 3. Excessive

✘ 4. Frivolous

Question ID : **441009349684**
Option 1 ID : **4410091365030**
Option 2 ID : **4410091365031**
Option 3 ID : **4410091365032**
Option 4 ID : **4410091365033**

Comprehension:

Read the given passage and answer the questions that follow.

During my stay at Ramanathapuram, my relationship with him grew beyond that of a teacher and pupil. In his company, I learnt that one could exercise enormous influence over the events of one's own life. Iyadurai Solomon used to say, "To succeed in life and achieve results, you must understand and master three mighty forces – desire, belief and expectation." Iyadurai Solomon, who later became a Reverend, taught me that before anything I wanted could happen, I had to desire it intensely and be absolutely certain it would happen. To take an example from my own life, I had been fascinated by the mysteries of the sky and the flight of birds from early childhood. I used to watch cranes and seagulls soar into fight and longed to fly. Simple provincial boy though I was, I was convinced that one day I, too, would soar up into the skies Indeed, I was the first child from Rameswaram to fly.

SubQuestion No : 20

Q.20 To succeed in life and achieve results, you must understand and master three mighty forces. What are the 'three forces' referred to in the passage?

Ans

✘ 1. Desire, belief and fascination

✔ 2. Desire, belief and expectation

✘ 3. Watch, exercise and expectation

✘ 4. Desire, disbelief and expectation

Question ID : **441009349683**
Option 1 ID : **4410091365028**
Option 2 ID : **4410091365027**
Option 3 ID : **4410091365029**
Option 4 ID : **4410091365026**

Section : **Test of English Language and Comprehension1**

Q.1 Select the option that can be used as a one-word substitute for the given phrase.

Refusing to follow instructions or rules and not easy to control6781

Ans
✗ 1. Pliable
✓ 2. Recalcitrant
✗ 3. Malleable
✗ 4. Acquiescent

Question ID : **441009434437**
Option 1 ID : **4410091697268**
Option 2 ID : **4410091697267**
Option 3 ID : **4410091697269**
Option 4 ID : **4410091697266**

Q.2 Select the most appropriate ANTONYM of the given word.

Laconic

Ans
✗ 1. Terse
✗ 2. Concise
✓ 3. Loquacious
✗ 4. Diffusible

Question ID : **441009350094**
Option 1 ID : **4410091366641**
Option 2 ID : **4410091366639**
Option 3 ID : **4410091366640**
Option 4 ID : **4410091366638**

Q.3 Select the option that can be used as a one-word substitute for the given group of words.

The statistical study of human population

Ans
✗ 1. Holography
✓ 2. Demography
✗ 3. Typography
✗ 4. Geography

Question ID : **441009827762**
Option 1 ID : **4410093264672**
Option 2 ID : **4410093264671**
Option 3 ID : **4410093264670**
Option 4 ID : **4410093264669**

QuickSarkari.com | WhatsApp Channel | Telegram: t.me/quick_sarkari

Q.4 Select the option that can be used as a one-word substitute for the given group of words.

Unwilling or refusing to change one's views or to agree about something.

Ans
1. Ineffable
2. Inexorable
3. Indefatigable
4. Intransigent

Question ID : **441009434436**
Option 1 ID : **4410091697262**
Option 2 ID : **4410091697265**
Option 3 ID : **4410091697264**
Option 4 ID : **4410091697263**

Q.5 Select the most appropriate meaning of the given proverb.

Cut your coat according to your cloth

Ans
1. Live within your income
2. It is better to finish your work before you have a good time
3. Confession marks the beginning of forgiveness
4. Always take the easiest possible approach to do something

Question ID : **441009382421**
Option 1 ID : **4410091495244**
Option 2 ID : **4410091495246**
Option 3 ID : **4410091495247**
Option 4 ID : **4410091495245**

Q.6 Parts of a sentence are given below in jumbled order. Arrange the parts in the correct order to form a meaningful sentence.

A) source of light
B) than the land
C) under normal conditions
D) the sea is a brighter
E) during the night

Ans
1. BAEDC
2. ABCDE
3. ECDAB
4. CEBAD

Question ID : **441009349502**
Option 1 ID : **4410091364417**
Option 2 ID : **4410091364414**
Option 3 ID : **4410091364415**
Option 4 ID : **4410091364416**

QuickSarkari.com | WhatsApp Channel | Telegram: t.me/quick_sarkari

Q.7 Select the most appropriate meaning of the given expression.

Let the cat out of the bag

Ans
✗ 1. Cause confusion

✗ 2. Escape from a problem

✓ 3. Reveal a secret unintentionally

✗ 4. Act without thinking

Question ID : **441009325815**
Option 1 ID : **4410091269559**
Option 2 ID : **4410091269561**
Option 3 ID : **4410091269562**
Option 4 ID : **4410091269560**

Q.8 Select the option that can be used as a one-word substitute for the given group of words.

A person who does not believe in the existence of God227

Ans
✗ 1. Sceptic

✗ 2. Theist

✓ 3. Atheist

✗ 4. Humanist

Question ID : **441009827985**
Option 1 ID : **4410093265562**
Option 2 ID : **4410093265561**
Option 3 ID : **4410093265564**
Option 4 ID : **4410093265563**

Q.9 Select the most appropriate ANTONYM of the given word.

Sluggish

Ans
✗ 1. Juvenile

✗ 2. Pranky

✓ 3. Brisk

✗ 4. Stable

Question ID : **441009350092**
Option 1 ID : **4410091366632**
Option 2 ID : **4410091366630**
Option 3 ID : **4410091366633**
Option 4 ID : **4410091366631**

QuickSarkari.com | WhatsApp Channel | Telegram: t.me/quick_sarkari

Q.10 Select the most appropriate synonym of the given word.

Judicious

Ans
1. Naïve
2. Prudent
3. Impractical
4. Instinctive

Question ID : **441009350082**
Option 1 ID : **4410091366593**
Option 2 ID : **4410091366590**
Option 3 ID : **4410091366591**
Option 4 ID : **4410091366592**

Q.11 Select the most appropriate meaning of the given proverb.

The pen is mightier than the sword.

Ans
1. Success comes from using your intellect wisely.
2. Always resolve conflicts through peaceful means.
3. Written words have more power than physical force.
4. Writing alone cannot bring about change and justice.

Question ID : **441009349906**
Option 1 ID : **4410091365887**
Option 2 ID : **4410091365889**
Option 3 ID : **4410091365888**
Option 4 ID : **4410091365886**

Q.12 Identify the INCORRECTLY spelt word in the given sentence.

She received a cirtificate for her outstanding performance in the competition.

Ans
1. competition
2. outstanding
3. received
4. cirtificate

Question ID : **441009349960**
Option 1 ID : **4410091366105**
Option 2 ID : **4410091366104**
Option 3 ID : **4410091366102**
Option 4 ID : **4410091366103**

QuickSarkari.com | WhatsApp Channel | Telegram: t.me/quick_sarkari

Q.13 Select the most appropriate meaning of the given idiom.

Spill the beans

Ans
1. To keep a secret
2. A well-planned strategy
3. To reveal a secret
4. A lucky break

Question ID : **44100999243**
Option 1 ID : **441009394962**
Option 2 ID : **441009394964**
Option 3 ID : **441009394961**
Option 4 ID : **441009394963**

Q.14 Select the correct spelling of the underlined incorrectly spelt word in the given sentence.

Arman was known for his gregoriuos nature, always surrounded by friends and laughter.

Ans
1. gragerious
2. grogerious
3. gregeries
4. gregarious

Question ID : **441009349887**
Option 1 ID : **4410091365813**
Option 2 ID : **4410091365810**
Option 3 ID : **4410091365812**
Option 4 ID : **4410091365811**

Q.15 Select the most appropriate synonym of the given word.

Meticulous

Ans
1. Precise
2. Imprudent
3. Discordant
4. Abstruse

Question ID : **441009350075**
Option 1 ID : **4410091366562**
Option 2 ID : **4410091366565**
Option 3 ID : **4410091366563**
Option 4 ID : **4410091366564**

QuickSarkari.com | WhatsApp Channel | Telegram: t.me/quick_sarkari

Comprehension:

Read the given passage and answer the questions that follow.

Everyone in the world risks feeling the fallout from climate change, from hotter days to sudden floods. The means to respond vary widely, however. These can be as simple as installing an energy-efficient air conditioner to cool your home. Or as complicated as erecting a sophisticated network of dams and canals to prevent a city from slipping under rising seas. Either way, lots of finance is required, often beyond what individuals or entire countries can afford. Even basic measures to reduce greenhouse gas emissions and adapt to climate change may be out of reach. While all people have inherent human rights to live and thrive, the lack of resources to limit and adjust to climate fallout is pushing a decent life and even survival beyond reach for many.

SubQuestion No : 16

Q.16 Which of the following most accurately states the main idea of the passage?

Ans

✗ 1. Drought and floods

✗ 2. How to live a decent life

✓ 3. The impact of climate change

✗ 4. Greenhouse gas

Question ID : **441009349716**
Option 1 ID : **4410091365137**
Option 2 ID : **4410091365136**
Option 3 ID : **4410091365134**
Option 4 ID : **4410091365135**

Comprehension:

Read the given passage and answer the questions that follow.

Everyone in the world risks feeling the fallout from climate change, from hotter days to sudden floods. The means to respond vary widely, however. These can be as simple as installing an energy-efficient air conditioner to cool your home. Or as complicated as erecting a sophisticated network of dams and canals to prevent a city from slipping under rising seas. Either way, lots of finance is required, often beyond what individuals or entire countries can afford. Even basic measures to reduce greenhouse gas emissions and adapt to climate change may be out of reach. While all people have inherent human rights to live and thrive, the lack of resources to limit and adjust to climate fallout is pushing a decent life and even survival beyond reach for many.

SubQuestion No : 17

Q.17 Which is the best description of the tone of the passage?

Ans

✗ 1. Provocative

✓ 2. Humanistic

✗ 3. Cynical

✗ 4. Harsh

Question ID : **441009349717**
Option 1 ID : **4410091365138**
Option 2 ID : **4410091365140**
Option 3 ID : **4410091365139**
Option 4 ID : **4410091365141**

Comprehension:

Read the given passage and answer the questions that follow.

Everyone in the world risks feeling the fallout from climate change, from hotter days to sudden floods. The means to respond vary widely, however. These can be as simple as installing an energy-efficient air conditioner to cool your home. Or as complicated as erecting a sophisticated network of dams and canals to prevent a city from slipping under rising seas. Either way, lots of finance is required, often beyond what individuals or entire countries can afford. Even basic measures to reduce greenhouse gas emissions and adapt to climate change may be out of reach. While all people have inherent human rights to live and thrive, the lack of resources to limit and adjust to climate fallout is pushing a decent life and even survival beyond reach for many.

SubQuestion No : 18

Q.18 Select the most appropriate ANTONYM of the given word from the passage.

Complicated

Ans

✗ 1. Silent

✓ 2. Simple

✗ 3. Special

✗ 4. Cheap

Question ID : **441009349718**
Option 1 ID : **4410091365145**
Option 2 ID : **4410091365142**
Option 3 ID : **4410091365144**
Option 4 ID : **4410091365143**

Comprehension:

Read the given passage and answer the questions that follow.

Everyone in the world risks feeling the fallout from climate change, from hotter days to sudden floods. The means to respond vary widely, however. These can be as simple as installing an energy-efficient air conditioner to cool your home. Or as complicated as erecting a sophisticated network of dams and canals to prevent a city from slipping under rising seas. Either way, lots of finance is required, often beyond what individuals or entire countries can afford. Even basic measures to reduce greenhouse gas emissions and adapt to climate change may be out of reach. While all people have inherent human rights to live and thrive, the lack of resources to limit and adjust to climate fallout is pushing a decent life and even survival beyond reach for many.

SubQuestion No : 19

Q.19 According to the passage, what is a simple way to respond to climate change?

Ans

✗ 1. Building underground metro systems

✗ 2. Launching satellites for weather forecasting

✓ 3. Installing an energy-efficient air conditioner

✗ 4. Replacing all vehicles with electric ones

Question ID : **441009349719**
Option 1 ID : **4410091365146**
Option 2 ID : **4410091365147**
Option 3 ID : **4410091365149**
Option 4 ID : **4410091365148**

Comprehension:

Read the given passage and answer the questions that follow.

Everyone in the world risks feeling the fallout from climate change, from hotter days to sudden floods. The means to respond vary widely, however. These can be as simple as installing an energy-efficient air conditioner to cool your home. Or as complicated as erecting a sophisticated network of dams and canals to prevent a city from slipping under rising seas. Either way, lots of finance is required, often beyond what individuals or entire countries can afford. Even basic measures to reduce greenhouse gas emissions and adapt to climate change may be out of reach. While all people have inherent human rights to live and thrive, the lack of resources to limit and adjust to climate fallout is pushing a decent life and even survival beyond reach for many.

SubQuestion No : 20

Q.20 Select the most appropriate ANTONYM of the given word from the passage.

Inherent

Ans

✗ 1. Ancient

✗ 2. Authentic

✓ 3. Acquired

✗ 4. Beneficial

Question ID : **441009349720**
Option 1 ID : **4410091365151**
Option 2 ID : **4410091365150**
Option 3 ID : **4410091365153**
Option 4 ID : **4410091365152**

Section : **Test of Hindi Language and Comprehension**

Q.1 निम्नलिखित वाक्य खंड क्रम से लिखें।
1. चतुर हो, इसलिए
2. पसंद करते हैं
3. तुम पढ़ने में
4. तुमको सभी शिक्षक

Ans

✓ 1. 3142

✗ 2. 1234

✗ 3. 4231

✗ 4. 2143

Question ID : **441009354537**
Option 1 ID : **4410091384388**
Option 2 ID : **4410091384391**
Option 3 ID : **4410091384389**
Option 4 ID : **4410091384390**

Q.2 उचित संबोधन कारक चुनकर निम्नलिखित वाक्य के रिक्त स्थान की पूर्ति करें-
' ____ ईश्वर ! मुझ पर दया करो '

Ans
✗ 1. अरे
✗ 2. अजी
✗ 3. ओ
✓ 4. हे

Question ID : **441009353969**
Option 1 ID : **4410091382116**
Option 2 ID : **4410091382117**
Option 3 ID : **4410091382119**
Option 4 ID : **4410091382118**

Q.3 निम्नलिखित वाक्य को ध्यानपूर्वक पढ़ें और वाक्य में त्रुटि की पहचान कर वाक्य शुद्ध करें।
तुम मत रवि को बताना कि गाड़ी खराब उसकी हो गई।

Ans
✗ 1. तुम रवि मत को बताना उसकी कि गाड़ी खराब हो गई।
✗ 2. तुम को रवि मत कि बताना हो उसकी गाड़ी खराब गई।
✗ 3. तुम बताना रवि को मत कि खराब उसकी गाड़ी हो गई।
✓ 4. तुम रवि को मत बताना कि उसकी गाड़ी खराब हो गई।

Question ID : **441009354565**
Option 1 ID : **4410091384501**
Option 2 ID : **4410091384503**
Option 3 ID : **4410091384502**
Option 4 ID : **4410091384500**

Q.4 'एक वस्तु लेकर उसके बदले में दूसरी वस्तु देना' वाक्यांश के लिए सार्थक शब्द का विकल्पों में से चयन कीजिए।

Ans
✗ 1. विक्रय
✗ 2. व्यापार
✗ 3. क्रय
✓ 4. विनिमय

Question ID : **441009354612**
Option 1 ID : **4410091384691**
Option 2 ID : **4410091384689**
Option 3 ID : **4410091384690**
Option 4 ID : **4410091384688**

Q.5 इस वाक्य में कौन सा शब्द क्रिया है। निम्नलिखित विकल्पों में से सही विकल्प का चयन कर वाक्य को पूर्ण करें।
'मेरी बहन सुधा मुझसे हिंदी भाषा सीखती है।' इस वाक्य में____शब्द क्रिया है।

Ans
✗ 1. बहन
✓ 2. सीखती
✗ 3. भाषा
✗ 4. हिंदी

Question ID : **441009948335**
Option 1 ID : **4410093746848**
Option 2 ID : **4410093746845**
Option 3 ID : **4410093746846**
Option 4 ID : **4410093746847**

Q.6 निम्न में से अतिरिक्त वाक्य पहचाने--

1.कुतुब परिसर में स्थित लौह स्तम्भ में 98 प्रतिशत लोहा है।
2.परंतु इस लौह स्तम्भ में इतने वर्षों बाद भी जंग नहीं लगा।
3.यह खुले आसमान के नीचे सदियों से अविचल खड़ा है।
4.इसे ध्वज स्तम्भ के रूप में खड़ा किया गया था।
5.यह एक पाँच मंज़िला इमारत है, जिस पर क़ुरान की आयते हैं।

Ans
✗ 1. 1
✗ 2. 2
✓ 3. 5
✗ 4. 4

Question ID : **44100945001**
Option 1 ID : **441009179221**
Option 2 ID : **441009179222**
Option 3 ID : **441009179224**
Option 4 ID : **441009179223**

Q.7 'जैसा व्यक्ति वैसी आवभगत' अर्थ निम्न में से किस लोकोक्ति का है--

Ans
✗ 1. ऊँट के मुँह में ज़ीरा
✓ 2. ईंट की देवी, माँगे का प्रसाद
✗ 3. उसी की जूती उसी के सिर
✗ 4. ईंट की लेनी, पत्थर की देनी

Question ID : **441009354176**
Option 1 ID : **4410091382947**
Option 2 ID : **4410091382945**
Option 3 ID : **4410091382946**
Option 4 ID : **4410091382944**

Q.8 दिए गए वाक्य का विन्यास की दृष्टि से शुद्ध रूप निम्न में से होगा—

अंदर मनुष्य के प्रेम, दया, करुणा आदि गुण होने ही चाहिए।

Ans
✗ 1. प्रेम, दया, करुणा आदि गुण होने ही चाहिए अंदर मनुष्य के।
✓ 2. मनुष्य के अंदर प्रेम, दया, करुणा आदि गुण होने ही चाहिए।
✗ 3. मनुष्य के अंदर प्रेम, दया, करुणा गुण होने ही चाहिए आदि।
✗ 4. मनुष्य के अंदर प्रेम, दया, करुणा होने ही चाहिए आदि गुण।

Question ID : **441009354562**
Option 1 ID : **4410091384489**
Option 2 ID : **4410091384488**
Option 3 ID : **4410091384491**
Option 4 ID : **4410091384490**

QuickSarkari.com | WhatsApp Channel | Telegram: t.me/quick_sarkari

Q.9 वाक्यांश के लिए सार्थक शब्द का चयन करें
'जो आसानी से मिलता है'

Ans
✗ 1. आसान
✓ 2. सुलभ
✗ 3. उपलब्ध
✗ 4. तुरंत

Question ID : **441009354577**
Option 1 ID : **4410091384550**
Option 2 ID : **4410091384549**
Option 3 ID : **4410091384548**
Option 4 ID : **4410091384551**

Q.10 निम्नलिखित वाक्य को पूर्ण करने के लिए उचित कालवाचक क्रिया-विशेषण का चयन करें-
माँ ने कहा कि मेहमान _____ आने वाले हैं।

Ans
✗ 1. सावधानी से
✗ 2. दाएँ
✓ 3. अब
✗ 4. काफ़ी

Question ID : **441009934461**
Option 1 ID : **4410093691576**
Option 2 ID : **4410093691575**
Option 3 ID : **4410093691577**
Option 4 ID : **4410093691578**

Q.11 निम्नलिखित मुहावरे के लिय उपयुक्त सार्थक शब्द है-

घर का न घाट का

Ans
✗ 1. बाहर चले जाना
✗ 2. घूमते रहना
✗ 3. चलते रहना
✓ 4. कहीं का न रहना

Question ID : **441009354442**
Option 1 ID : **4410091384010**
Option 2 ID : **4410091384008**
Option 3 ID : **4410091384011**
Option 4 ID : **4410091384009**

Q.12 निम्नलिखित विकल्पों में से एक भिन्न अतिरिक्त वाक्य का चयन करें।

Ans
✗ 1. लेकिन एक अवधारणा के तौर पर सूचना की जाँच- पड़ताल बहुत कम हुई है
✗ 2. सूचना समाज के पैरोकार भी एक विचार के रूप में सूचना के सूत्रीकरण पर ज्यादा दिमाग खपाते नहीं दिखाई देते
✗ 3. मानव इतिहास के प्रत्येक दौर में सूचना के उत्पादन, प्रयोग, संग्रह और वितरण का केंद्रीय महत्व रहा है
✓ 4. समाज और संस्कृति की समय सापेक्ष विशेषताएँ होती हैं, यह विशेषताएँ समय सापेक्ष बदलती रहती हैं

Question ID : **4410091096357**
Option 1 ID : **4410094322820**
Option 2 ID : **4410094322819**
Option 3 ID : **4410094322817**
Option 4 ID : **4410094322818**

QuickSarkari.com | WhatsApp Channel | Telegram: t.me/quick_sarkari

Q.13 उचित कारक चिह्न चुनकर निम्नलिखित वाक्य के रिक्त स्थान की पूर्ति करें-
'नियत समय ___ काम करो और उसका मीठा फल पाओ'

Ans
✗ 1. से
✓ 2. पर
✗ 3. के द्वारा
✗ 4. का

Question ID : **441009353968**
Option 1 ID : **4410091382115**
Option 2 ID : **4410091382113**
Option 3 ID : **4410091382112**
Option 4 ID : **4410091382114**

Q.14 नीचे दिए गए वाक्य के लिए सही कारक का चुनाव करें ।
..... एक रुपया दिलवाया।

Ans
✗ 1. कोई
✗ 2. यह
✓ 3. उसने
✗ 4. वह

Question ID : **441009353974**
Option 1 ID : **4410091382139**
Option 2 ID : **4410091382138**
Option 3 ID : **4410091382136**
Option 4 ID : **4410091382137**

Q.15 'प्रत्येक व्यक्ति जीना चाहते हैं' वाक्य के किस अंश में दोष है ?

Ans
✗ 1. प्रत्येक
✗ 2. व्यक्ति
✗ 3. जीना
✓ 4. चाहते हैं

Question ID : **441009354635**
Option 1 ID : **4410091384780**
Option 2 ID : **4410091384781**
Option 3 ID : **4410091384783**
Option 4 ID : **4410091384782**

QuickSarkari.com | WhatsApp Channel | Telegram: t.me/quick_sarkari

Comprehension:

गद्यांश के आधार पर प्रश्न का उत्तर दें ।

जिस दिन नेता सुधार के मार्ग पर पैर रखे, उसी दिन उसे प्राणों का मोह छोड़ देना चाहिए क्योंकि सहयोगियों का विश्वासघात और विरोधियों की नंगी तलवार सदा उसके मस्तक पर नृत्य किया करती है कभी-कभी ऐसा समय आ जाता है जब अनुयायी साथ देना छोड़कर सदा के लिए किनारा कर लेते हैं। महात्मा बुद्ध को भी उनके शिष्य छोड़कर चले गये थे। सत्य की रक्षा के लिए कर्तव्य से दूर नहीं भागना चाहिए। सिद्धान्तो की सत्यता पर विश्वास करके आगे बढ़ना चाहिए। "मेरे जीवन की अपेक्षा मेरी मृत्यु से ही सत्य का अधिक कल्याण होगा" - यह कहते हुए महात्मा ईसा सूली पर चढ़ गये और महान दार्शनिक सुकरात मुस्कराते हुए जहर का प्याला पी गए। इतिहास साक्षी है कि महात्मा ईसा के साथ उनका धर्म सूली पर नही चढ़ाया जा सका और न सुकरात के साथ उनके शाश्वत सिद्धान्तों का अन्त हुआ।

SubQuestion No : 16

Q.16 'आततइयों' शब्द का सही अर्थ चुनिए ।

Ans

✗ 1. पापियों

✓ 2. अत्याचारियों

✗ 3. अधर्मियों

✗ 4. ढोंगियों

Question ID : **441009365126**
Option 1 ID : **4410091426682**
Option 2 ID : **4410091426684**
Option 3 ID : **4410091426683**
Option 4 ID : **4410091426685**

Comprehension:

गद्यांश के आधार पर प्रश्न का उत्तर दें ।

जिस दिन नेता सुधार के मार्ग पर पैर रखे, उसी दिन उसे प्राणों का मोह छोड़ देना चाहिए क्योंकि सहयोगियों का विश्वासघात और विरोधियों की नंगी तलवार सदा उसके मस्तक पर नृत्य किया करती है कभी-कभी ऐसा समय आ जाता है जब अनुयायी साथ देना छोड़कर सदा के लिए किनारा कर लेते हैं। महात्मा बुद्ध को भी उनके शिष्य छोड़कर चले गये थे। सत्य की रक्षा के लिए कर्तव्य से दूर नहीं भागना चाहिए। सिद्धान्तो की सत्यता पर विश्वास करके आगे बढ़ना चाहिए। "मेरे जीवन की अपेक्षा मेरी मृत्यु से ही सत्य का अधिक कल्याण होगा" - यह कहते हुए महात्मा ईसा सूली पर चढ़ गये और महान दार्शनिक सुकरात मुस्कराते हुए जहर का प्याला पी गए। इतिहास साक्षी है कि महात्मा ईसा के साथ उनका धर्म सूली पर नही चढ़ाया जा सका और न सुकरात के साथ उनके शाश्वत सिद्धान्तों का अन्त हुआ।

SubQuestion No : 17

Q.17 नेताओं को अपने प्राणों का मोह कब त्याग देना चाहिए?

Ans

✗ 1. परिवार पर ध्यान दें

✗ 2. मित्रों के साथ घूमें

✗ 3. अपना स्वार्थ देखें

✓ 4. जब नेता सुधार के मार्ग पर पैर रखे

Question ID : **441009365128**
Option 1 ID : **4410091426691**
Option 2 ID : **4410091426693**
Option 3 ID : **4410091426692**
Option 4 ID : **4410091426690**

Comprehension:

गद्यांश के आधार पर प्रश्न का उत्तर दें ।

जिस दिन नेता सुधार के मार्ग पर पैर रखे, उसी दिन उसे प्राणों का मोह छोड़ देना चाहिए क्योंकि सहयोगियों का विश्वासघात और विरोधियों की नंगी तलवार सदा उसके मस्तक पर नृत्य किया करती है कभी-कभी ऐसा समय आ जाता है जब अनुयायी साथ देना छोड़कर सदा के लिए किनारा कर लेते हैं। महात्मा बुद्ध को भी उनके शिष्य छोड़कर चले गये थे। सत्य की रक्षा के लिए कर्तव्य से दूर नहीं भागना चाहिए। सिद्धान्तो की सत्यता पर विश्वास करके आगे बढ़ना चाहिए। "मेरे जीवन की अपेक्षा मेरी मृत्यु से ही सत्य का अधिक कल्याण होगा" - यह कहते हुए महात्मा ईसा सूली पर चढ़ गये और महान दार्शनिक सुकरात मुस्कराते हुए जहर का प्याला पी गए। इतिहास साक्षी है कि महात्मा ईसा के साथ उनका धर्म सूली पर नही चढ़ाया जा सका और न सुकरात के साथ उनके शाश्वत सिद्धान्तों का अन्त हुआ।

SubQuestion No : 18

Q.18 सुकरात ने जहर का प्याला क्यों पिया ?

Ans

✗ 1. देवत्व प्राप्त करने के लिए

✗ 2. अपने घर परिवार के हित लिए

✗ 3. अनुयायियों की रक्षा के लिए

✓ 4. सत्य और निष्ठा के लिए

Question ID : **441009365127**
Option 1 ID : **4410091426688**
Option 2 ID : **4410091426686**
Option 3 ID : **4410091426687**
Option 4 ID : **4410091426689**

Comprehension:

गद्यांश के आधार पर प्रश्न का उत्तर दें ।

जिस दिन नेता सुधार के मार्ग पर पैर रखे, उसी दिन उसे प्राणों का मोह छोड़ देना चाहिए क्योंकि सहयोगियों का विश्वासघात और विरोधियों की नंगी तलवार सदा उसके मस्तक पर नृत्य किया करती है कभी-कभी ऐसा समय आ जाता है जब अनुयायी साथ देना छोड़कर सदा के लिए किनारा कर लेते हैं। महात्मा बुद्ध को भी उनके शिष्य छोड़कर चले गये थे। सत्य की रक्षा के लिए कर्तव्य से दूर नहीं भागना चाहिए। सिद्धान्तो की सत्यता पर विश्वास करके आगे बढ़ना चाहिए। "मेरे जीवन की अपेक्षा मेरी मृत्यु से ही सत्य का अधिक कल्याण होगा" - यह कहते हुए महात्मा ईसा सूली पर चढ़ गये और महान दार्शनिक सुकरात मुस्कराते हुए जहर का प्याला पी गए। इतिहास साक्षी है कि महात्मा ईसा के साथ उनका धर्म सूली पर नही चढ़ाया जा सका और न सुकरात के साथ उनके शाश्वत सिद्धान्तों का अन्त हुआ।

SubQuestion No : 19

Q.19 महात्मा ईसा के साथ किसे सूली पर नही चढ़ाया जा सका ?

Ans

✗ 1. उनके गुरु को

✗ 2. उनके शिष्य को

✓ 3. उनके धर्म को

✗ 4. उनके सहयोगी को

Question ID : **441009365125**
Option 1 ID : **4410091426681**
Option 2 ID : **4410091426679**
Option 3 ID : **4410091426678**
Option 4 ID : **4410091426680**

Comprehension:

गद्यांश के आधार पर प्रश्न का उत्तर दें ।

जिस दिन नेता सुधार के मार्ग पर पैर रखे, उसी दिन उसे प्राणों का मोह छोड़ देना चाहिए क्योंकि सहयोगियों का विश्वासघात और विरोधियों की नंगी तलवार सदा उसके मस्तक पर नृत्य किया करती है कभी-कभी ऐसा समय आ जाता है जब अनुयायी साथ देना छोड़कर सदा के लिए किनारा कर लेते हैं। महात्मा बुद्ध को भी उनके शिष्य छोड़कर चले गये थे। सत्य की रक्षा के लिए कर्तव्य से दूर नहीं भागना चाहिए। सिद्धान्तो की सत्यता पर विश्वास करके आगे बढ़ना चाहिए। "मेरे जीवन की अपेक्षा मेरी मृत्यु से ही सत्य का अधिक कल्याण होगा" - यह कहते हुए महात्मा ईसा सूली पर चढ़ गये और महान दार्शनिक सुकरात मुस्कराते हुए जहर का प्याला पी गए। इतिहास साक्षी है कि महात्मा ईसा के साथ उनका धर्म सूली पर नही चढ़ाया जा सका और न सुकरात के साथ उनके शाश्वत सिद्धान्तों का अन्त हुआ।

SubQuestion No : 20

Q.20 "महान दार्शनिक सुकरात मुस्कराते हुए जहर का प्याला पी गए" इस कथन में कौन सा भाव निहित है ?

Ans
✗ 1. कृतज्ञता का
✓ 2. बलिदान का
✗ 3. खुशी का
✗ 4. करुणा का

Question ID : **441009365124**
Option 1 ID : **4410091426676**
Option 2 ID : **4410091426677**
Option 3 ID : **4410091426674**
Option 4 ID : **4410091426675**

Section : **Test of Hindi Language and Comprehension1**

Q.1 निम्नलिखित में से कौन सा शब्द 'मूल' का अनेकार्थी नहीं है –

Ans
✗ 1. जड़
✗ 2. एक नक्षत्र
✗ 3. पूँजी
✓ 4. शंख

Question ID : **441009354102**
Option 1 ID : **4410091382649**
Option 2 ID : **4410091382650**
Option 3 ID : **4410091382651**
Option 4 ID : **4410091382648**

Q.2 दिए गए विकल्पों में से कौन-सा शब्द तद्भव शब्द नहीं है?

Ans
✗ 1. कान
✓ 2. चंद्र
✗ 3. खेत
✗ 4. घड़ी

Question ID : **441009354334**
Option 1 ID : **4410091383579**
Option 2 ID : **4410091383576**
Option 3 ID : **4410091383578**
Option 4 ID : **4410091383577**

QuickSarkari.com | WhatsApp Channel | Telegram: t.me/quick_sarkari

Q.3 'मयन' किसका पर्यायवाची है –

Ans
✗ 1. भगवान
✗ 2. इंद्र
✗ 3. कार्तिकेय
✓ 4. कामदेव

Question ID : **441009354367**
Option 1 ID : **4410091383709**
Option 2 ID : **4410091383708**
Option 3 ID : **4410091383711**
Option 4 ID : **4410091383710**

Q.4 विज्ञान की देन है - विश्लेषण, निव्यर्क्तिकता तथा तटस्था। रेखांकित शब्द के लिए शुद्ध शब्द का चयन कीजिये।

Ans
✗ 1. निव्यर्क्तिकता
✗ 2. निव्यर्कितकता
✓ 3. निर्वैयक्तिकता
✗ 4. निर्वेयक्तिकता

Question ID : **441009354237**
Option 1 ID : **4410091383190**
Option 2 ID : **4410091383188**
Option 3 ID : **4410091383189**
Option 4 ID : **4410091383191**

Q.5 दिये गये वाक्य के किस भाग में त्रुटि है?
एक बड़े भू-क्षेत्र में लंबे समय तक रहने वाले मोसम की औसत स्थिति को जलवायु की संज्ञा दी जाती है।

Ans
✗ 1. लंबे समय तक रहने वाले
✓ 2. मोसम की औसत स्थिति को
✗ 3. एक बड़े भू-क्षेत्र में
✗ 4. जलवायु की संज्ञा दी जाती है

Question ID : **441009682599**
Option 1 ID : **4410092684374**
Option 2 ID : **4410092684375**
Option 3 ID : **4410092684373**
Option 4 ID : **4410092684376**

Q.6 निम्नलिखित मुहावरे का सही अर्थ पहचानें।

टंटा खड़ा करना

Ans
✗ 1. सभा बुलाना
✗ 2. भीड़ इकट्ठा करना
✓ 3. झगड़ा करना
✗ 4. जश्न मनाना

Question ID : **441009682616**
Option 1 ID : **4410092684444**
Option 2 ID : **4410092684442**
Option 3 ID : **4410092684441**
Option 4 ID : **4410092684443**

Q.7 निम्न में से किस मुहावरे का अर्थ 'घर में बेकार बैठे रहना' होता है ?

Ans
✗ 1. औने पौने करना
✓ 2. अंडे सेना
✗ 3. अंग टूटना
✗ 4. अगर-मगर करना

Question ID : **441009354345**
Option 1 ID : **4410091383623**
Option 2 ID : **4410091383620**
Option 3 ID : **4410091383621**
Option 4 ID : **4410091383622**

Q.8 'पोखर' शब्द है –

Ans
✗ 1. देशज
✗ 2. विदेशज
✗ 3. तत्सम
✓ 4. तद्भव

Question ID : **441009354383**
Option 1 ID : **4410091383774**
Option 2 ID : **4410091383775**
Option 3 ID : **4410091383772**
Option 4 ID : **4410091383773**

Q.9 निम्नलिखित वाक्य के किस भाग में त्रुटि है?
'आपकी सहायता के लिए मैं उपषसितित हूँ'

Ans
✓ 1. उपषसितित हूँ
✗ 2. आपकी
✗ 3. के लिए मै
✗ 4. सहायता

Question ID : **441009354184**
Option 1 ID : **4410091382979**
Option 2 ID : **4410091382976**
Option 3 ID : **4410091382978**
Option 4 ID : **4410091382977**

Q.10 निम्नलिखित शब्दों में से 'अहेरी' का पर्यायवाची शब्द बताओ ?

Ans
✗ 1. उपर्युक्त में से कोई नही
✓ 2. शिकारी
✗ 3. अडिग
✗ 4. लोहा

Question ID : **441009354218**
Option 1 ID : **4410091383115**
Option 2 ID : **4410091383113**
Option 3 ID : **4410091383114**
Option 4 ID : **4410091383112**

QuickSarkari.com | WhatsApp Channel | Telegram: t.me/quick_sarkari

Q.11 दिए गए वाक्य के किस अंश में वर्तनी की दृष्टि से त्रुटि है पहचाने---
पानी अपने साथ मिट्टी और पत्थर बहा ले जाता है।

Ans
✔ 1. साथ मिट्टी और
✘ 2. पत्थर बहा
✘ 3. ले जाता है।
✘ 4. पानी अपने

Question ID : **441009354146**
Option 1 ID : **4410091382825**
Option 2 ID : **4410091382826**
Option 3 ID : **4410091382827**
Option 4 ID : **4410091382824**

Q.12 दिए गए विकल्पों में से कौन-सा शब्द 'मुद्रा' शब्द के अनेक अर्थों में से एक नहीं है?

Ans
✘ 1. मोहर
✘ 2. अंगूठी
✔ 3. लाल
✘ 4. सिक्का

Question ID : **441009354327**
Option 1 ID : **4410091383549**
Option 2 ID : **4410091383550**
Option 3 ID : **4410091383551**
Option 4 ID : **4410091383548**

Q.13 निम्नलिखित मुहावरे के उपयुक्त अर्थ का चयन करें -
आग में पानी डालना

Ans
✘ 1. अप्राप्य वस्तु
✔ 2. क्रोध शांत करना
✘ 3. क्रोध बढ़ाना
✘ 4. असंभव कार्य करना

Question ID : **441009354151**
Option 1 ID : **4410091382845**
Option 2 ID : **4410091382846**
Option 3 ID : **4410091382847**
Option 4 ID : **4410091382844**

Q.14 दिए गए विकल्पों में से 'विहान' शब्द के उचित अर्थ का चयन करें-

Ans
✔ 1. अरुणोदय
✘ 2. चिड़िया
✘ 3. भ्रमण
✘ 4. वीणा

Question ID : **441009354480**
Option 1 ID : **4410091384162**
Option 2 ID : **4410091384160**
Option 3 ID : **4410091384163**
Option 4 ID : **4410091384161**

QuickSarkari.com | WhatsApp Channel | Telegram: t.me/quick_sarkari

Q.15 निम्नलिखित विकल्पों में से कौन सा एक विलोम युग्म सही नहीं है?

Ans

✗ 1. साक्षर-निरक्षर

✗ 2. सदय-निर्दय

✗ 3. संकल्प-विकल्प

✓ 4. वक्र-बाँका

Question ID : **441009354500**
Option 1 ID : **4410091384243**
Option 2 ID : **4410091384241**
Option 3 ID : **4410091384240**
Option 4 ID : **4410091384242**

Comprehension:

गद्यांश के आधार पर प्रश्न का उत्तर दें।
अपनी कमजोरियों से लड़ें। अपने शुभ गुणों के विकास का संकल्प लें। संसार के उत्थान की शुरुआत अपने उत्थान से होती है। अत: हम संकल्प करें कि सन्मार्ग को छोड़कर न चलें, हम दुर्गुणों को भले ही सुला दे परन्तु अपने सद्गुणों को जगाए रखें। सभी आदमी अच्छे और सभी आदमी बुरे हो सकते हैं। कुछ लोग रात दिन अपने दुर्गणों के प्रेत को जगाने के लिए शमशान पूजा में लगे रहते हैं। इसी काम में अपनी पूरी ताकत झोंक देते हैं और एक बुरे व्यक्ति के रूप में बदनाम हो जाते हैं। कुछ व्यक्ति शुभ चिन्तन की ऊर्जा में अपने सदगुणों को जगाए रखते हैं और एक अच्छे आदमी की छवि निर्मित कर लेते हैं। अच्छा-बुरा सब कुछ हमारे भीतर है। बुराई पल भर में किसी भी पूज्य को निंदनीय व्यक्ति बना सकती है अतः हम संकल्प लें कि हमारे मन का शिवरूप सदा जागृत रहें। हम अपने परिवार की उन्नति का संकल्प लें। पारिवारिक प्रगति एवं उन्नति के लिए अनुचित साधनों का इस्तेमाल न करें। जिस प्रकार के साधन होंगे, सिद्धि भी उसी प्रकार की होगी। हर प्रकार की व्यस्तता के बीच संतान के भविष्य की चिन्ता करें। बगीचे के छोटे से पौधे को हम नियमित रूप से सींचते है आने वाले कल की तैयारी करते हैं। परंतु संतान के प्रति पूरी तरह लापरवाह बने रहते हैं। संतान हमारा भविष्य है। उसके वर्तमान पर ध्यान दें । उसका वर्तमान सुधारें अन्यथा हमारा आने वाला कल दुखद एवं नारकीय होगा।

SubQuestion No : 16

Q.16 पारिवारिक उन्नति के लिए इनमें से कौन सी बात नहीं कही गई है ?

Ans

✓ 1. परिवार के सदस्यों को संघर्ष करने के लिए प्रेरित करें।

✗ 2. आने वाले कल की तैयारी करें।

✗ 3. अनुचित साधनों का कभी प्रयोग न करें ।

✗ 4. हर तरह की व्यस्तता के बीच संतान के भविष्य की चिन्ता करें।

Question ID : **441009365107**
Option 1 ID : **4410091426620**
Option 2 ID : **4410091426621**
Option 3 ID : **4410091426618**
Option 4 ID : **4410091426619**

QuickSarkari.com | WhatsApp Channel | Telegram: t.me/quick_sarkari

Comprehension:

गद्यांश के आधार पर प्रश्न का उत्तर दें।
अपनी कमजोरियों से लड़ें। अपने शुभ गुणों के विकास का संकल्प लें। संसार के उत्थान की शुरुआत अपने उत्थान से होती है। अत: हम संकल्प करें कि सन्मार्ग को छोड़कर न चलें, हम दुर्गुणों को भले ही सुला दे परन्तु अपने सद्गुणों को जगाए रखें। सभी आदमी अच्छे और सभी आदमी बुरे हो सकते हैं। कुछ लोग रात दिन अपने दुर्गणों के प्रेत को जगाने के लिए शमशान पूजा में लगे रहते हैं। इसी काम में अपनी पूरी ताकत झोंक देते हैं और एक बुरे व्यक्ति के रूप में बदनाम हो जाते हैं। कुछ व्यक्ति शुभ चिन्तन की ऊर्जा में अपने सदगुणों को जगाए रखते हैं और एक अच्छे आदमी की छवि निर्मित कर लेते हैं। अच्छा-बुरा सब कुछ हमारे भीतर है। बुराई पल भर में किसी भी पूज्य को निंदनीय व्यक्ति बना सकती है अत: हम संकल्प लें कि हमारे मन का शिवरूप सदा जागृत रहें। हम अपने परिवार की उन्नति का संकल्प लें। पारिवारिक प्रगति एवं उन्नति के लिए अनुचित साधनों का इस्तेमाल न करें। जिस प्रकार के साधन होंगे, सिद्धि भी उसी प्रकार की होगी। हर प्रकार की व्यस्तता के बीच संतान के भविष्य की चिन्ता करें। बगीचे के छोटे से पौधे को हम नियमित रूप से सींचते है आने वाले कल की तैयारी करते हैं। परंतु संतान के प्रति पूरी तरह लापरवाह बने रहते हैं। संतान हमारा भविष्य है। उसके वर्तमान पर ध्यान दें । उसका वर्तमान सुधारें अन्यथा हमारा आने वाला कल दुखद एवं नारकीय होगा।

SubQuestion No : 17

Q.17 गद्यांश के अनुसार बुराई पल भर में क्या कर सकती हैं ?

Ans
✗ 1. दण्डित कर सकती है।
✗ 2. लोगों की नजरों में गिरा सकती है।
✓ 3. किसी भी पूज्य को निंदनीय बना सकती है
✗ 4. समाज में अच्छा नाम कर सकती है

Question ID : **441009365106**
Option 1 ID : **4410091426616**
Option 2 ID : **4410091426614**
Option 3 ID : **4410091426617**
Option 4 ID : **4410091426615**

Comprehension:

गद्यांश के आधार पर प्रश्न का उत्तर दें।
अपनी कमजोरियों से लड़ें। अपने शुभ गुणों के विकास का संकल्प लें। संसार के उत्थान की शुरुआत अपने उत्थान से होती है। अत: हम संकल्प करें कि सन्मार्ग को छोड़कर न चलें, हम दुर्गुणों को भले ही सुला दे परन्तु अपने सद्गुणों को जगाए रखें। सभी आदमी अच्छे और सभी आदमी बुरे हो सकते हैं। कुछ लोग रात दिन अपने दुर्गणों के प्रेत को जगाने के लिए शमशान पूजा में लगे रहते हैं। इसी काम में अपनी पूरी ताकत झोंक देते हैं और एक बुरे व्यक्ति के रूप में बदनाम हो जाते हैं। कुछ व्यक्ति शुभ चिन्तन की ऊर्जा में अपने सदगुणों को जगाए रखते हैं और एक अच्छे आदमी की छवि निर्मित कर लेते हैं। अच्छा-बुरा सब कुछ हमारे भीतर है। बुराई पल भर में किसी भी पूज्य को निंदनीय व्यक्ति बना सकती है अत: हम संकल्प लें कि हमारे मन का शिवरूप सदा जागृत रहें। हम अपने परिवार की उन्नति का संकल्प लें। पारिवारिक प्रगति एवं उन्नति के लिए अनुचित साधनों का इस्तेमाल न करें। जिस प्रकार के साधन होंगे, सिद्धि भी उसी प्रकार की होगी। हर प्रकार की व्यस्तता के बीच संतान के भविष्य की चिन्ता करें। बगीचे के छोटे से पौधे को हम नियमित रूप से सींचते है आने वाले कल की तैयारी करते हैं। परंतु संतान के प्रति पूरी तरह लापरवाह बने रहते हैं। संतान हमारा भविष्य है। उसके वर्तमान पर ध्यान दें । उसका वर्तमान सुधारें अन्यथा हमारा आने वाला कल दुखद एवं नारकीय होगा।

SubQuestion No : 18

Q.18 मनुष्य का आने वाला कल कब दुखद हो जाता है ?

Ans
✗ 1. भौतिक सुख साधन जुटाने से
✗ 2. काम न करने से
✗ 3. सद्भाव अपनाने से
✓ 4. संतान के वर्तमान पर ध्यान न देने से।

Question ID : **441009365109**
Option 1 ID : **4410091426627**
Option 2 ID : **4410091426629**
Option 3 ID : **4410091426628**
Option 4 ID : **4410091426626**

Comprehension:

गद्यांश के आधार पर प्रश्न का उत्तर दें।
अपनी कमजोरियों से लड़ें। अपने शुभ गुणों के विकास का संकल्प लें। संसार के उत्थान की शुरुआत अपने उत्थान से होती है। अत: हम संकल्प करें कि सन्मार्ग को छोड़कर न चलें, हम दुर्गुणों को भले ही सुला दे परन्तु अपने सद्गुणों को जगाए रखें। सभी आदमी अच्छे और सभी आदमी बुरे हो सकते हैं। कुछ लोग रात दिन अपने दुर्गणों के प्रेत को जगाने के लिए शमशान पूजा में लगे रहते हैं। इसी काम में अपनी पूरी ताकत झोंक देते हैं और एक बुरे व्यक्ति के रूप में बदनाम हो जाते हैं। कुछ व्यक्ति शुभ चिन्तन की ऊर्जा में अपने सदगुणों को जगाए रखते हैं और एक अच्छे आदमी की छवि निर्मित कर लेते हैं। अच्छा-बुरा सब कुछ हमारे भीतर है। बुराई पल भर में किसी भी पूज्य को निंदनीय व्यक्ति बना सकती है अत: हम संकल्प लें कि हमारे मन का शिवरूप सदा जागृत रहें। हम अपने परिवार की उन्नति का संकल्प लें। पारिवारिक प्रगति एवं उन्नति के लिए अनुचित साधनों का इस्तेमाल न करें। जिस प्रकार के साधन होंगे, सिद्धि भी उसी प्रकार की होगी। हर प्रकार की व्यस्तता के बीच संतान के भविष्य की चिन्ता करें। बगीचे के छोटे से पौधे को हम नियमित रूप से सींचते है आने वाले कल की तैयारी करते हैं। परंतु संतान के प्रति पूरी तरह लापरवाह बने रहते हैं। संतान हमारा भविष्य है। उसके वर्तमान पर ध्यान दें । उसका वर्तमान सुधारें अन्यथा हमारा आने वाला कल दुखद एवं नारकीय होगा।

SubQuestion No : 19

Q.19 गद्यांश में लेखक किसको जगाने की बात कर रहे है ?

Ans
✔ 1. सद्गुणों को ।
✘ 2. अवगुणों को ।
✘ 3. साहस को
✘ 4. भौतिक सुखों को |

Question ID : **441009365108**
Option 1 ID : **4410091426624**
Option 2 ID : **4410091426622**
Option 3 ID : **4410091426625**
Option 4 ID : **4410091426623**

Comprehension:

गद्यांश के आधार पर प्रश्न का उत्तर दें।
अपनी कमजोरियों से लड़ें। अपने शुभ गुणों के विकास का संकल्प लें। संसार के उत्थान की शुरुआत अपने उत्थान से होती है। अत: हम संकल्प करें कि सन्मार्ग को छोड़कर न चलें, हम दुर्गुणों को भले ही सुला दे परन्तु अपने सद्गुणों को जगाए रखें। सभी आदमी अच्छे और सभी आदमी बुरे हो सकते हैं। कुछ लोग रात दिन अपने दुर्गणों के प्रेत को जगाने के लिए शमशान पूजा में लगे रहते हैं। इसी काम में अपनी पूरी ताकत झोंक देते हैं और एक बुरे व्यक्ति के रूप में बदनाम हो जाते हैं। कुछ व्यक्ति शुभ चिन्तन की ऊर्जा में अपने सदगुणों को जगाए रखते हैं और एक अच्छे आदमी की छवि निर्मित कर लेते हैं। अच्छा-बुरा सब कुछ हमारे भीतर है। बुराई पल भर में किसी भी पूज्य को निंदनीय व्यक्ति बना सकती है अत: हम संकल्प लें कि हमारे मन का शिवरूप सदा जागृत रहें। हम अपने परिवार की उन्नति का संकल्प लें। पारिवारिक प्रगति एवं उन्नति के लिए अनुचित साधनों का इस्तेमाल न करें। जिस प्रकार के साधन होंगे, सिद्धि भी उसी प्रकार की होगी। हर प्रकार की व्यस्तता के बीच संतान के भविष्य की चिन्ता करें। बगीचे के छोटे से पौधे को हम नियमित रूप से सींचते है आने वाले कल की तैयारी करते हैं। परंतु संतान के प्रति पूरी तरह लापरवाह बने रहते हैं। संतान हमारा भविष्य है। उसके वर्तमान पर ध्यान दें । उसका वर्तमान सुधारें अन्यथा हमारा आने वाला कल दुखद एवं नारकीय होगा।

SubQuestion No : 20

Q.20 किस संकल्प की बात लेखक ने नहीं की है ?

Ans
✘ 1. सन्मार्ग पर चलना कभी न छोड़
✔ 2. कमजोर लोगों की मदद करें
✘ 3. अपने शुभ गुणों का विकास करें
✘ 4. अपने दुर्गणों को समाप्त करें

Question ID : **441009365110**
Option 1 ID : **4410091426631**
Option 2 ID : **4410091426633**
Option 3 ID : **4410091426632**
Option 4 ID : **4410091426630**

Quick Sarkari

Thank you for studying with QuickSarkari!

Get the latest Sarkari Naukri notifications, admit cards, results, answer keys and free previous-year papers first - follow us on WhatsApp and Telegram.

Visit www.quicksarkari.com

Join our WhatsApp Channel

https://whatsapp.com/channel/0029VaxxbrREquiPoXTWM229

Join our Telegram Channel

https://t.me/quick_sarkari

Share this PDF with your friends preparing for DSSSB exams.