Quick Sarkari

DSSSB PREVIOUS YEAR PAPER WITH ANSWER KEY

DSSSB Labour Officer

28 June 2025 · Shift 2

डीएसएसएसबी श्रम अधिकारी – 28 जून 2025, शिफ्ट 2 का प्रश्न पत्र, उत्तर कुंजी सहित

200	120 min	1 / −0.25	EN + HI
Questions / प्रश्न	Duration / समय	Marks per Q / अंक	Language / भाषा

Sections: General intelligence and Reasoning Ability, General Awareness, Arithmetical and Numerical Ability, Test of English Language and Comprehension, Test of Hindi Language and Comprehension, Labour Officer

INSIDE THIS PDF / इस PDF में

Question Paper in English + Hindi with Answer Key (correct option marked in green) + answer table Page 2–47
प्रश्न पत्र अंग्रेज़ी + हिंदी में, उत्तर कुंजी सहित (सही विकल्प हरे रंग में) + उत्तर तालिका

Official DSSSB Response Sheet with Answer Key (correct option ticked in green) Page 48–117
आधिकारिक DSSSB रिस्पॉन्स शीट, उत्तर कुंजी सहित (सही विकल्प हरे टिक से)

HOW TO USE THIS PAPER / इस पेपर का उपयोग कैसे करें

1. Attempt the paper first as a timed online mock test (link below).
   पहले नीचे दिए लिंक से इसे टाइमर के साथ ऑनलाइन मॉक टेस्ट के रूप में हल करें।
2. Check your score, section-wise analysis and solutions online.
   ऑनलाइन अपना स्कोर, खंड-वार विश्लेषण और हल देखें।
3. Use this PDF for revision. Correct answers are shown in green.
   दोहराने के लिए इस PDF का उपयोग करें। सही उत्तर हरे रंग में दिए गए हैं।

Attempt this paper as a FREE online mock test
इस पेपर को फ्री ऑनलाइन मॉक टेस्ट के रूप में हल करें – टाइमर, स्कोर और हल के साथ
https://quicksarkari.com/dsssb-labour-officer-28-june-2025-shift-2-mock-test/

All DSSSB Labour Officer papers and mock tests: **quicksarkari.com/dsssb-mock-test/#labour-officer**

Join WhatsApp Channel | Join Telegram Channel

DSSSB Labour Officer – Question Paper (English + Hindi)

DSSSB श्रम अधिकारी – प्रश्न पत्र (अंग्रेज़ी + हिंदी)

Exam held on 28 June 2025, Shift 2 · 200 questions · correct answers marked ✔ in green
परीक्षा तिथि 28 जून 2025, शिफ्ट 2 · 200 प्रश्न · सही उत्तर हरे रंग में ✔ से चिह्नित

> The official paper for this shift was in English. The Hindi version of each question is a translation prepared by QuickSarkari; the language-section questions are shown as asked.
> इस शिफ्ट का आधिकारिक प्रश्न पत्र अंग्रेज़ी में था। प्रत्येक प्रश्न का हिंदी संस्करण QuickSarkari द्वारा तैयार किया गया अनुवाद है; भाषा खंड के प्रश्न मूल रूप में दिए गए हैं।

General intelligence and Reasoning Ability

Q.1 9 is related to 30 following a certain logic. Following the same logic, 4 is related to 15. To which of the following is 6 related, following the same logic?
(NOTE: Operations should be performed on the whole numbers, without breaking down the numbers into their constituent digits. E.g. 13 – Operations on 13 such as adding/subtracting/multiplying to 13 can be performed. Breaking down 13 into 1 and 3 and then performing mathematical operations on 1 and 3 is not allowed.)

एक निश्चित तर्क का अनुसरण करते हुए 9, 30 से संबंधित है। उसी तर्क का अनुसरण करते हुए 4, 15 से संबंधित है। उसी तर्क का अनुसरण करते हुए 6 निम्नलिखित में से किससे संबंधित है?
(नोट: संक्रियाएँ संख्याओं को उनके घटक अंकों में विभाजित किए बिना, पूर्ण संख्याओं पर की जानी चाहिए। उदाहरण के लिए 13 – 13 पर संक्रियाएँ जैसे 13 में जोड़ना/घटाना/गुणा करना आदि की जा सकती हैं। 13 को 1 और 3 में विभाजित करना और फिर 1 और 3 पर गणितीय संक्रियाएँ करना वर्जित है।)

(1) 19
(2) 24
(3) 22
(4) 21 ✔

QuickSarkari

Q.2 Select the figure from among the given options that can replace the question mark (?) in the following series.

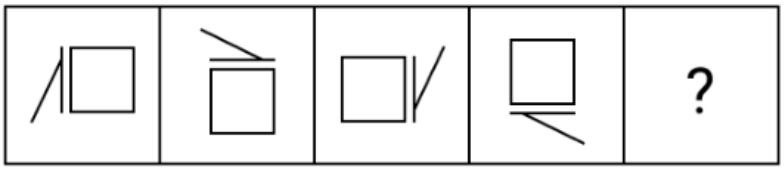

दिए गए विकल्पों में से उस आकृति का चयन करें जो निम्नलिखित श्रृंखला में प्रश्न चिह्न (?) के स्थान पर आ सकती है।

(1) 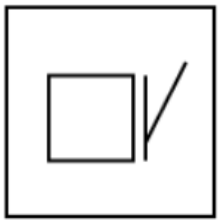

(2) 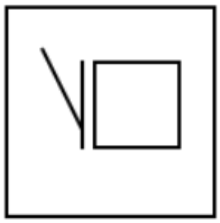

(3) 

(4) 

✔

Q.3 What should come in place of the question mark (?) in the given series?
414 427 453 492 544 ?

दी गई श्रृंखला में प्रश्न चिह्न (?) के स्थान पर क्या आना चाहिए?
414 427 453 492 544 ?

(1) 607
(2) 603
(3) 601
(4) **609** ✔

QuickSarkari.com | WhatsApp Channel | Telegram: t.me/quick_sarkari

Q.4 If 'A' stands for '÷', 'B' stands for '×', 'C' stands for '+' and 'D' stands for '−', then what will come in place of the question mark (?) in the following equation?
8 B 4 D 18 A 3 C 9 = ? D 4

यदि 'A' का अर्थ '÷', 'B' का अर्थ '×', 'C' का अर्थ '+' और 'D' का अर्थ '−' है, तो निम्नलिखित समीकरण में प्रश्न चिह्न (?) के स्थान पर क्या आएगा?
8 B 4 D 18 A 3 C 9 = ? D 4

(1) 39 ✔
(2) 37
(3) 35
(4) 40

Q.5 In a certain code language, 'A + B' means 'A is the sister of B', 'A − B' means 'A is the mother of B', 'A × B' means 'A is the wife of B' and 'A ÷ B' means 'A is the husband of B'.
How is E related to I if 'E ÷ F − G + H × I'?

एक निश्चित कूट भाषा में, 'A + B' का अर्थ है 'A, B की बहन है', 'A − B' का अर्थ है 'A, B की माँ है', 'A × B' का अर्थ है 'A, B की पत्नी है' और 'A ÷ B' का अर्थ है 'A, B का पति है'।
यदि 'E ÷ F − G + H × I' है, तो E का I से क्या संबंध है?

(1) Sister's husband / बहन का पति
(2) Mother's father / माँ के पिता
(3) Father's brother / पिता का भाई
(4) Wife's father / पत्नी के पिता ✔

Q.6 N, O, P, Q, R, S, and X are sitting around a circular table, facing the centre of the table. Only one person sits between R and O, when counted from the left of O. S sits third to the right of P. X sits third to the left of Q. S sits to the immediate right of X. N is not an immediate neighbour of X. How many people sit between N and O, when counted from the right of N?

N, O, P, Q, R, S और X एक वृत्ताकार मेज के चारों ओर मेज के केंद्र की ओर मुख करके बैठे हैं। O के बाएँ से गिनने पर R और O के बीच केवल एक व्यक्ति बैठा है। S, P के दाएँ से तीसरे स्थान पर बैठा है। X, Q के बाएँ से तीसरे स्थान पर बैठा है। S, X के ठीक दाएँ बैठा है। N, X का निकटतम पड़ोसी नहीं है। N के दाएँ से गिनने पर N और O के बीच कितने व्यक्ति बैठे हैं?

(1) Three / तीन ✔
(2) Two / दो
(3) One / एक
(4) Four / चार

Q.7 Anand starts from Point A and drives 14 km towards the west. He then takes a right turn, drives 17 km, then turns right and drives 19 km. He then takes a right turn and drives 18 km. He takes a final right turn, drives 5 km and stops at Point P. How far (shortest distance) and towards which direction should he drive in order to reach Point A again? (All turns are 90-degree turns only unless specified.)

आनंद बिंदु A से चलना शुरू करता है और पश्चिम की ओर 14 km गाड़ी चलाता है। फिर वह दाएँ मुड़ता है, 17 km गाड़ी चलाता है, फिर दाएँ मुड़ता है और 19 km गाड़ी चलाता है। फिर वह दाएँ मुड़ता है और 18 km गाड़ी चलाता है। वह अंतिम बार दाएँ मुड़ता है, 5 km गाड़ी चलाता है और बिंदु P पर रुक जाता है। बिंदु A पर फिर से पहुँचने के लिए उसे कितनी दूरी (न्यूनतम दूरी) और किस दिशा में गाड़ी चलानी चाहिए? (जब तक निर्दिष्ट न हो, सभी मोड़ केवल 90 डिग्री के मोड़ हैं।)

(1) 1 km to the north / उत्तर की ओर 1 km ✔
(2) 3 km to the north / उत्तर की ओर 3 km
(3) 2 km to the north / उत्तर की ओर 2 km
(4) 4 km to the north / उत्तर की ओर 4 km

Q.8 Select the set in which the numbers are related in the same way as are the numbers of the following sets.
(NOTE: Operations should be performed on the whole numbers, without breaking down the numbers into their constituent digits. E.g. 13 – Operations on 13 such as adding/subtracting/multiplying to 13 can be performed. Breaking down 13 into 1 and 3 and then performing mathematical operations on 1 and 3 is not allowed.)
(46, 71, 5)
(1, 170, 13)

उस समुच्चय का चयन करें जिसकी संख्याएँ आपस में उसी प्रकार संबंधित हैं जिस प्रकार निम्नलिखित समुच्चयों की संख्याएँ संबंधित हैं।
(नोट: संक्रियाएँ संख्याओं को उनके घटक अंकों में विभाजित किए बिना, पूर्ण संख्याओं पर की जानी चाहिए। उदाहरण के लिए 13 – 13 पर संक्रियाएँ जैसे 13 में जोड़ना/घटाना/गुणा करना आदि की जा सकती हैं। 13 को 1 और 3 में विभाजित करना और फिर 1 और 3 पर गणितीय संक्रियाएँ करना वर्जित है।)
(46, 71, 5)
(1, 170, 13)

(1) (9, 335, 18)
(2) (27, 654, 25)
(3) (26, 62, 6) ✔
(4) (23, 125, 10)

Q.9 Based on the English alphabetical order, three of the following four letter-cluster pairs are alike in a certain way and thus form a group. Which letter-cluster pair DOES NOT belong to that group?
(Note: The odd one out is not based on the number of consonants/vowels or their position in the letter-cluster.)

अंग्रेजी वर्णमाला क्रम के आधार पर, निम्नलिखित चार अक्षर-समूह युग्मों में से तीन किसी न किसी प्रकार से एकसमान हैं और इस प्रकार एक समूह बनाते हैं। कौन-सा अक्षर-समूह युग्म उस समूह से संबंधित नहीं है?
(नोट: असंगत अक्षर-समूह, उस अक्षर-समूह में व्यंजनों/स्वरों की संख्या या उनके स्थान पर आधारित नहीं है।)

(1) DH-KE ✔
(2) GK-NI
(3) IM-PK
(4) LP-SN

Q.10 Which of the following letter clusters will replace the question mark (?) in the given series to make it logically complete?
RQU VUY ZYC DCG ?

दी गई श्रृंखला को तार्किक रूप से पूर्ण करने के लिए निम्नलिखित में से कौन-सा अक्षर-समूह प्रश्न चिह्न (?) का स्थान लेगा?
RQU VUY ZYC DCG ?

(1) HFJ
(2) HGK ✔
(3) HHJ
(4) HIK

Q.11 If 'A' stands for '÷', 'B' stands for '×', 'C' stands for '+' and 'D' stands for '−', what will come in place of question mark (?) in the following equation?
12 B 10 A 3 D 26 C 48 = ?
यदि 'A' का अर्थ '÷', 'B' का अर्थ '×', 'C' का अर्थ '+' और 'D' का अर्थ '−' है, तो निम्नलिखित समीकरण में प्रश्न चिह्न (?) के स्थान पर क्या आएगा?
12 B 10 A 3 D 26 C 48 = ?

(1) 60
(2) **62 ✔**
(3) 63
(4) 64

Q.12 This question is based on the given words.
ARE HAD MAY WON If in each of the words, each letter is changed to the immediate next letter in the English alphabetical order, how many words thus formed will have no vowel?
यह प्रश्न दिए गए शब्दों पर आधारित है।
ARE HAD MAY WON यदि प्रत्येक शब्द के प्रत्येक अक्षर को अंग्रेजी वर्णमाला क्रम में उसके ठीक अगले अक्षर में बदल दिया जाए, तो इस प्रकार बने कितने शब्दों में कोई स्वर नहीं होगा?

(1) **Two / दो ✔**
(2) One / एक
(3) None / एक भी नहीं
(4) Three / तीन

Q.13 In a certain code language, 'KNEW' is coded as '7694' and 'NECK' is coded as '3947'. What is the code for 'C' in the given code language?
एक निश्चित कूट भाषा में, 'KNEW' को '7694' के रूप में कूटबद्ध किया जाता है और 'NECK' को '3947' के रूप में कूटबद्ध किया जाता है। उस कूट भाषा में 'C' के लिए कूट क्या है?

(1) 7
(2) 9
(3) **3 ✔**
(4) 4

Q.14 Select the pair that follows the same pattern as that followed by the two pairs given below. Both pairs follow the same pattern.
BHP : HNV IMQ : OSW
उस युग्म का चयन करें जो उसी पैटर्न का अनुसरण करता है जिसका अनुसरण नीचे दिए गए दो युग्म करते हैं। दोनों युग्म एक ही पैटर्न का अनुसरण करते हैं।
BHP : HNV IMQ : OSW

(1) HRT : LVX
(2) BFO : DHQ
(3) **JLT : PRZ ✔**
(4) AFJ : DJM

Q.15 Based on the English alphabetical order, three of the following four letter-clusters are alike in a certain way and thus form a group. Which letter-cluster DOES NOT belong to that group?
(Note: The odd one out is not based on the number of consonants/vowels or their position in the letter-cluster.)
अंग्रेजी वर्णमाला क्रम के आधार पर, निम्नलिखित चार अक्षर-समूहों में से तीन किसी न किसी प्रकार से एकसमान हैं और इस प्रकार एक समूह बनाते हैं। कौन-सा अक्षर-समूह उस समूह से संबंधित नहीं है?
(नोट: असंगत अक्षर-समूह, उस अक्षर-समूह में व्यंजनों/स्वरों की संख्या या उनके स्थान पर आधारित नहीं है।)

(1) DBZ
(2) **KJG ✔**
(3) HFD
(4) AYW

Q.16 Each of P, Q, R, S, T, U, and V has exam on a different day of a week starting from Monday and ending on Sunday of the same week.
T has exam on Saturday. Only two people have exam between Q and T. U has exam immediately before R but not on Monday. P has exam immediately after S.
How many people have exam between V and S?
P, Q, R, S, T, U और V में से प्रत्येक की परीक्षा एक ही सप्ताह के सोमवार से शुरू होकर रविवार को समाप्त होने वाले सप्ताह के एक अलग दिन है। T की परीक्षा शनिवार को है। Q और T के बीच केवल दो व्यक्तियों की परीक्षा है। U की परीक्षा R से ठीक पहले है, परंतु सोमवार को नहीं। P की परीक्षा S के ठीक बाद है।
V और S के बीच कितने व्यक्तियों की परीक्षा है?

(1) **Five / पाँच ✔**
(2) Three / तीन
(3) Two / दो
(4) One / एक

Q.17 This question is based on the five, three-digit numbers given below.
(Left) 578 546 528 986 975 (Right)
(Example- 697 – First digit = 6, second digit = 9 and third digit = 7)
(NOTE: All operations to be done from left to right.)
What will be the resultant if the second digit of the second highest number is added to the third digit of the lowest number?
यह प्रश्न नीचे दी गई तीन अंकों वाली पाँच संख्याओं पर आधारित है।
(बाएँ) 578 546 528 986 975 (दाएँ)
(उदाहरण- 697 – पहला अंक = 6, दूसरा अंक = 9 और तीसरा अंक = 7)
(नोट: सभी संक्रियाएँ बाएँ से दाएँ की जानी हैं।)
यदि दूसरी सबसे बड़ी संख्या के दूसरे अंक को सबसे छोटी संख्या के तीसरे अंक में जोड़ा जाए, तो परिणाम क्या होगा?

(1) 11
(2) 12
(3) **15 ✔**
(4) 9

Q.18 Read the given statements and conclusions carefully. Assuming that the information given in the statements is true, even if it appears to be at variance with commonly known facts, decide which of the given conclusion(s) logically follow(s) from the statements.
Statements:
All salt are pepper.
All salt are oreganos.
Some oreganos are flakes.
Conclusions:
(I): Some flakes are salt.
(II): Some oreganos are pepper.
दिए गए कथनों और निष्कर्षों को ध्यानपूर्वक पढ़ें। यह मानते हुए कि कथनों में दी गई जानकारी सत्य है, भले ही वह सामान्य रूप से ज्ञात तथ्यों से भिन्न प्रतीत होती हो, निर्णय लें कि दिए गए निष्कर्षों में से कौन-सा/कौन-से निष्कर्ष कथनों का तार्किक रूप से अनुसरण करता है/करते हैं।
कथन:
सभी नमक, काली मिर्च हैं।
सभी नमक, ओरिगैनो हैं।
कुछ ओरिगैनो, फ्लेक्स हैं।
निष्कर्ष:
(I): कुछ फ्लेक्स, नमक हैं।
(II): कुछ ओरिगैनो, काली मिर्च हैं।

(1) Neither conclusion (I) nor (II) follows. / न तो निष्कर्ष (I) और न ही (II) अनुसरण करता है।
(2) Only conclusion (I) follows. / केवल निष्कर्ष (I) अनुसरण करता है।
(3) Only conclusion (II) follows. / केवल निष्कर्ष (II) अनुसरण करता है। ✔
(4) Both conclusions (I) and (II) follow. / निष्कर्ष (I) और (II) दोनों अनुसरण करते हैं।

Q.19 In a row of people all facing the north, Jughal is 21st from the left end. Anshu is 27th from the left end. Anshu is exactly between Jughal and Radhe. If Radhe is 16th from the right end of the line, how many people are there in the row?
उत्तर की ओर मुख करके खड़े व्यक्तियों की एक पंक्ति में, जुगल बाएँ छोर से 21वें स्थान पर है। अंशु बाएँ छोर से 27वें स्थान पर है। अंशु, जुगल और राधे के ठीक मध्य में है। यदि राधे पंक्ति के दाएँ छोर से 16वें स्थान पर है, तो पंक्ति में कितने व्यक्ति हैं?

(1) 46
(2) 47
(3) 48 ✔
(4) 49

Q.20 Which of the following letter-number clusters will replace the question mark (?) in the given series to make it logically complete?
ERO36, QDA58, CPM80, OBY102, ?
दी गई श्रृंखला को तार्किक रूप से पूर्ण करने के लिए निम्नलिखित में से कौन-सा अक्षर-संख्या समूह प्रश्न चिह्न (?) का स्थान लेगा?
ERO36, QDA58, CPM80, OBY102, ?

(1) BNK124
(2) ANK124 ✔
(3) ANK123
(4) AJK124

General Awareness

Q.21 Chief Minister Nayab Singh Saini, won from which of the following constituencies of Haryana in the Legislative Assembly Election, 2024?

मुख्यमंत्री नायब सिंह सैनी ने विधानसभा चुनाव, 2024 में हरियाणा के निम्नलिखित में से किस निर्वाचन क्षेत्र से जीत हासिल की?

(1) Ladwa / लाडवा ✔

(2) Israna / इसराना

(3) Faridabad / फरीदाबाद

(4) Badshahpur / बादशाहपुर

Q.22 Traditionally, the region located between the Satluj and Indus rivers is referred to as:

परंपरागत रूप से, सतलुज और सिंधु नदियों के बीच स्थित क्षेत्र को _____ कहा जाता है।

(1) Nepal Himalayas / नेपाल हिमालय

(2) Assam Himalayas / असम हिमालय

(3) Punjab Himalayas / पंजाब हिमालय ✔

(4) Kumaon Himalayas / कुमाऊँ हिमालय

Q.23 A Writ of _____ is issued by a higher court (High Court or the Supreme Court) when a lower court has considered a case going beyond its jurisdiction.

जब किसी निचली अदालत ने अपने अधिकार क्षेत्र से बाहर जाकर किसी मामले पर विचार किया हो, तब उच्चतर न्यायालय (उच्च न्यायालय या सर्वोच्च न्यायालय) द्वारा _____ की रिट जारी की जाती है।

(1) Mandamus / परमादेश

(2) Habeas Corpus / बंदी प्रत्यक्षीकरण

(3) Quo-Warranto / अधिकार-पृच्छा

(4) Prohibition / प्रतिषेध ✔

Q.24 The battle of Bannihatti was fought between Vijayanagar and Bijapur empires in _____.

बन्नीहट्टी का युद्ध _____ में विजयनगर और बीजापुर साम्राज्यों के बीच लड़ा गया था।

(1) 1563

(2) 1565 ✔

(3) 1568

(4) 1569

Q.25 What is the term used to describe the proportion of the population living below the poverty line?

गरीबी रेखा से नीचे रहने वाली जनसंख्या के अनुपात का वर्णन करने के लिए किस शब्द का प्रयोग किया जाता है?

(1) Poverty gap / गरीबी अंतराल

(2) Headcount ratio / हेडकाउंट अनुपात ✔

(3) Gini coefficient / गिनी गुणांक

(4) Human poverty index / मानव गरीबी सूचकांक

Q.26 What is the name of the largest imaging atmospheric telescope installed at Hanle, Ladakh in October 2024?

अक्टूबर 2024 में हानले, लद्दाख में स्थापित सबसे बड़े इमेजिंग वायुमंडलीय दूरबीन का नाम क्या है?

(1) Liquid Mirror Telescope / लिक्विड मिरर टेलीस्कोप

(2) Thirty Meter Telescope / थर्टी मीटर टेलीस्कोप

(3) **Major Atmospheric Cerenkov Experiment Telescope / मेजर एटमॉस्फेरिक चेरेनकोव एक्सपेरिमेंट टेलीस्कोप ✔**

(4) Devasthal Optical Telescope / देवस्थल ऑप्टिकल टेलीस्कोप

Q.27 Which of the following types of forest is characterised by trees that shed their leaves for about six to eight weeks during dry summer?

निम्नलिखित में से किस प्रकार के वन की विशेषता यह है कि उसके वृक्ष शुष्क ग्रीष्म ऋतु में लगभग छह से आठ सप्ताह के लिए अपनी पत्तियाँ गिरा देते हैं?

(1) **Tropical deciduous forests / उष्णकटिबंधीय पर्णपाती वन ✔**

(2) Tropical thorn forests / उष्णकटिबंधीय कंटीले वन

(3) Mangrove forests / मैंग्रोव वन

(4) Montane forests / पर्वतीय वन

Q.28 In which state did a school set up India's first AI-generated school teacher robot named 'IRIS' in March 2024?

मार्च 2024 में किस राज्य के एक विद्यालय ने 'IRIS' नामक भारत का पहला AI-जनित स्कूल शिक्षक रोबोट स्थापित किया?

(1) Karnataka / कर्नाटक

(2) **Kerala / केरल ✔**

(3) Haryana / हरियाणा

(4) Tamil Nadu / तमिलनाडु

Q.29 Which of the following players won the bronze medal in the Men's 50 m rifle 3 positions at the Olympics 2024?

निम्नलिखित में से किस खिलाड़ी ने ओलंपिक 2024 में पुरुषों की 50 m राइफल 3 पोजीशन में कांस्य पदक जीता?

(1) Amit Panghal / अमित पंघाल

(2) **Swapnil Kusale / स्वप्निल कुसाले ✔**

(3) Arjun Cheema / अर्जुन चीमा

(4) Anish Bhanwala / अनीश भानवाला

Q.30 What was the effect of the Swadeshi Movement on Indian industry?

भारतीय उद्योग पर स्वदेशी आंदोलन का क्या प्रभाव पड़ा?

(1) It resulted in the closure of many Indian factories. / इसके परिणामस्वरूप कई भारतीय कारखाने बंद हो गए।

(2) **It led to the establishment of Swadeshi industries and promotion of Indian-made goods. / इससे स्वदेशी उद्योगों की स्थापना हुई और भारत में निर्मित वस्तुओं को बढ़ावा मिला। ✔**

(3) It had no impact on the Indian economy. / इसका भारतीय अर्थव्यवस्था पर कोई प्रभाव नहीं पड़ा।

(4) It created a monopoly for British industries. / इससे ब्रिटिश उद्योगों का एकाधिकार स्थापित हो गया।

Q.31 Which category of economic activity is related to obtaining natural resources directly from the environment?

आर्थिक गतिविधि की कौन-सी श्रेणी पर्यावरण से सीधे प्राकृतिक संसाधन प्राप्त करने से संबंधित है?

(1) Tertiary / तृतीयक

(2) Secondary / द्वितीयक

(3) Quaternary / चतुर्थक

(4) **Primary / प्राथमिक ✔**

Q.32 The hard shell around a walnut is composed of _____.

अखरोट के चारों ओर का कठोर कवच _____ से बना होता है।

(1) vascular tissues / संवहनी ऊतकों

(2) mesophyll tissues / पर्णमध्योतक ऊतकों

(3) parenchymatous cells / मृदूतक कोशिकाओं

(4) **sclerenchymatous cells / दृढ़ोतक कोशिकाओं ✔**

Q.33 In Buddhist architecture, what does the hemispherical dome or vase symbolise?

बौद्ध वास्तुकला में, अर्धगोलाकार गुंबद या कलश किसका प्रतीक है?

(1) Space / आकाश

(2) Fire / अग्नि

(3) **Water / जल ✔**

(4) Earth / पृथ्वी

Q.34 Who launched the National Pension System Vatsalya (NPS Vatsalya) scheme in September 2024?

सितंबर 2024 में राष्ट्रीय पेंशन प्रणाली वात्सल्य (NPS वात्सल्य) योजना का शुभारंभ किसने किया?

(1) Narendra Modi / नरेंद्र मोदी

(2) Rajnath Singh / राजनाथ सिंह

(3) **Nirmala Sitharaman / निर्मला सीतारमण ✔**

(4) Amit Shah / अमित शाह

Q.35 Which of the following is a dicot plant?

निम्नलिखित में से कौन-सा एक द्विबीजपत्री पौधा है?

(1) **Gram / चना ✔**

(2) Rice / चावल

(3) Maize / मक्का

(4) Wheat / गेहूँ

Q.36 What is the minimum number of Supreme Court judges required to hear a case, involving a substantial question of law as to the Interpretation of the Constitution?

संविधान की व्याख्या से संबंधित विधि के किसी सारवान प्रश्न वाले मामले की सुनवाई के लिए सर्वोच्च न्यायालय के न्यायाधीशों की न्यूनतम संख्या कितनी होनी आवश्यक है?

(1) **Five / पाँच ✔**

(2) Eleven / ग्यारह

(3) Three / तीन

(4) Seven / सात

Q.37 Which of the following tree species is found in the Ganga-Brahmaputra delta and provides durable hard timber?

निम्नलिखित में से कौन-सी वृक्ष प्रजाति गंगा-ब्रह्मपुत्र डेल्टा में पाई जाती है और टिकाऊ कठोर लकड़ी प्रदान करती है?

(1) Sandalwood / चंदन

(2) Teak / सागौन

(3) Neem / नीम

(4) **Sundari / सुंदरी ✔**

Q.38 Who was elected as the President of the International Court of Justice (ICJ) in February 2024?

फरवरी 2024 में अंतर्राष्ट्रीय न्यायालय (ICJ) के अध्यक्ष के रूप में किसे चुना गया?

(1) Xue Hanqin / शुए हानचिन

(2) **Nawaf Salam / नवाफ सलाम ✔**

(3) Peter Tomka / पीटर टोमका

(4) Julia Sebutinde / जूलिया सेबुटिंडे

Q.39 What is the primary theme of the book 'Rupa-Ikshana', published in 2002?

2002 में प्रकाशित पुस्तक 'रूप-ईक्षण' का मुख्य विषय क्या है?

(1) Historical events of the 20th century / 20वीं शताब्दी की ऐतिहासिक घटनाएँ

(2) Political developments in India / भारत में राजनीतिक घटनाक्रम

(3) **Indian art and culture / भारतीय कला और संस्कृति ✔**

(4) Economic policies of India / भारत की आर्थिक नीतियाँ

Q.40 Which of the following in NOT a feature of the Indian Constitution?

निम्नलिखित में से कौन-सी भारतीय संविधान की विशेषता नहीं है?

(1) Written Constitution / लिखित संविधान

(2) Federalism / संघवाद

(3) **Sovereignty of Parliament / संसद की संप्रभुता ✔**

(4) Judicial Review / न्यायिक पुनर्विलोकन

Arithmetical and Numerical Ability

Q.41 Express $0.7\overline{32}$ in the form of p/q, where q is non-zero and p and q are integers.

$0.7\overline{32}$ को p/q के रूप में व्यक्त कीजिए, जहाँ q शून्येतर है तथा p और q पूर्णांक हैं।

(1) 29/36

(2) **145/198 ✔**

(3) 23/36

(4) 45/33

Q.42 The following two pie charts show the percentage quantity of fruits at two shops P and Q.

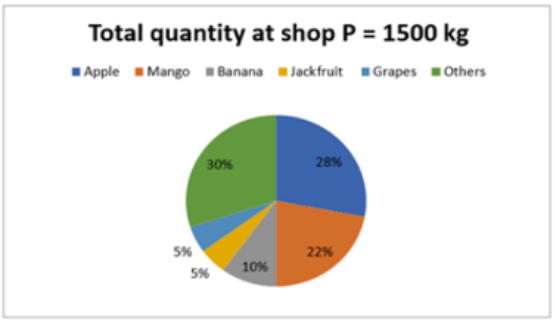

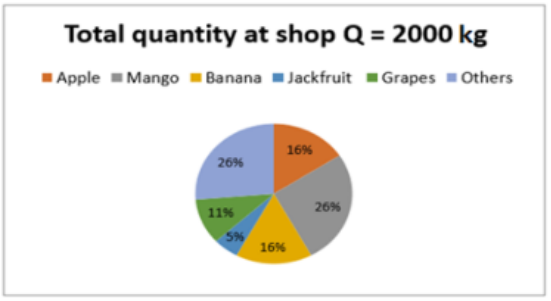

If the price of apple is ₹200/kg and mango is ₹100/kg for both shops P and Q, then what is the difference between the cost of these two fruits at shop P and that at shop Q?

निम्नलिखित दो पाई चार्ट दो दुकानों P और Q पर फलों की प्रतिशत मात्रा दर्शाते हैं।

यदि दोनों दुकानों P और Q के लिए सेब का मूल्य ₹200/kg और आम का मूल्य ₹100/kg है, तो दुकान P पर इन दोनों फलों की लागत और दुकान Q पर इनकी लागत के बीच कितना अंतर है?

(1) ₹4,500

(2) **₹1,000** ✔

(3) ₹2,500

(4) ₹3,000

Q.43 A pipe can fill a tank in 20 hours. Another pipe can empty the filled tank in 45 hours. If both the pipes are opened simultaneously, then the time (in hours) in which the tank will be filled is:

एक पाइप किसी टंकी को 20 घंटे में भर सकता है। दूसरा पाइप भरी हुई टंकी को 45 घंटे में खाली कर सकता है। यदि दोनों पाइप एक साथ खोल दिए जाएँ, तो टंकी कितने समय (घंटों में) में भर जाएगी?

(1) 37

(2) **36** ✔

(3) 38

(4) 39

Q.44 Find the total surface area of a right circular cone with a slant height of 10 cm and a height of 8 cm. (Rounded off up to two decimal places)
(Take π = 22/7)

10 cm तिर्यक ऊँचाई और 8 cm ऊँचाई वाले एक लंब वृत्तीय शंकु का संपूर्ण पृष्ठीय क्षेत्रफल ज्ञात कीजिए। (दशमलव के दो स्थानों तक पूर्णांकित) (π = 22/7 लीजिए)

(1) 312.62 cm^{2} / 312.62 cm^2

(2) 293.43 cm^{2} / 293.43 cm^2

(3) **301.71 cm^{2} / 301.71 cm^2** ✔

(4) 324.94 cm^{2} / 324.94 cm^2

Q.45 A vendor bought lemons at 42 for ₹1. How many must he sell for ₹1 to gain 100%?

एक विक्रेता ने ₹1 में 42 की दर से नींबू खरीदे। 100% लाभ प्राप्त करने के लिए उसे ₹1 में कितने नींबू बेचने चाहिए?

(1) 23

(2) 25

(3) 22

(4) **21** ✔

Q.46 What is the smallest natural number that should be added to 7197 such that a remainder of 3 is left when the resulting number is divided by each of the numbers 15, 11, 66, and 75?

वह सबसे छोटी प्राकृतिक संख्या कौन-सी है जिसे 7197 में जोड़ने पर प्राप्त संख्या को 15, 11, 66 और 75 में से प्रत्येक संख्या से विभाजित करने पर 3 शेष बचे?

(1) 1047

(2) **1056** ✔

(3) 1074

(4) 1041

Q.47 What is the average of all the natural numbers from 1 to 64?

1 से 64 तक की सभी प्राकृतिक संख्याओं का औसत क्या है?

(1) 33.5

(2) 33

(3) **32.5** ✔

(4) 32

Q.48 If a 6946 m long train crosses a pole in 151 seconds, then find the time (in seconds) taken by the train to cross a 322 m long platform.

यदि 6946 m लंबी एक रेलगाड़ी एक खंभे को 151 सेकंड में पार करती है, तो रेलगाड़ी द्वारा 322 m लंबे प्लेटफॉर्म को पार करने में लिया गया समय (सेकंड में) ज्ञात कीजिए।

(1) 163

(2) 156

(3) 150

(4) **158** ✔

Q.49 Find the simple interest (to the closest integral ₹) on ₹4,000 at 5.25% per annum rate of interest for the period from 18 February 2024 to 19 April 2024.

₹4,000 पर 5.25% वार्षिक ब्याज दर से 18 फरवरी 2024 से 19 अप्रैल 2024 तक की अवधि के लिए साधारण ब्याज (निकटतम पूर्णांक ₹ तक) ज्ञात कीजिए।

(1) 36

(2) 34

(3) 33

(4) **35** ✔

Q.50 The volume (in cm^{3}) of a wire of diameter 12 cm and length 21 m is:
Take π = 22/7

12 cm व्यास और 21 m लंबाई वाले एक तार का आयतन (cm^3 में) कितना है?
π = 22/7 लीजिए

(1) 2,38,300
(2) 2,38,000
(3) 2,36,900
(4) **2,37,600** ✔

Q.51 A man sold an article for ₹132 by first giving a d% discount on its marked price, and then another discount having the same nominal value (in ₹). If the marked price of the article is ₹880, what is the value of d?

एक व्यक्ति ने किसी वस्तु को उसके अंकित मूल्य पर पहले d% की छूट देकर और फिर समान अंकित मान (₹ में) की एक अन्य छूट देकर ₹132 में बेचा। यदि वस्तु का अंकित मूल्य ₹880 है, तो d का मान क्या है?

(1) 37.3
(2) **42.5** ✔
(3) 39.5
(4) 46

Q.52 Simplify the following expression.
$\sqrt[6]{64} + \sqrt[4]{2401} + \sqrt[3]{17576} + \sqrt{1600}$

निम्नलिखित व्यंजक को सरल कीजिए।
$\sqrt[6]{64} + \sqrt[4]{2401} + \sqrt[3]{17576} + \sqrt{1600}$

(1) 158
(2) 85
(3) 9
(4) **75** ✔

Q.53 Nidhi invested a sum of ₹1,800 at 10% per annum compound interest, compounded annually. If she received an amount of ₹2,178 after n years, the value of n is:

निधि ने ₹1,800 की राशि 10% वार्षिक चक्रवृद्धि ब्याज पर निवेश की, जिसमें ब्याज वार्षिक रूप से संयोजित होता है। यदि उसे n वर्षों के बाद ₹2,178 की राशि प्राप्त हुई, तो n का मान है:

(1) 2.5
(2) 3
(3) **2** ✔
(4) 1.5

Q.54 Two pipes can fill a tank in 53 hours and 4 hours, respectively. The time (in hours) required to fill the tank when both the pipes are opened simultaneously is:

दो पाइप एक टंकी को क्रमशः 53 घंटे और 4 घंटे में भर सकते हैं। दोनों पाइपों को एक साथ खोलने पर टंकी को भरने में लगने वाला समय (घंटों में) है:

(1) 213/58
(2) 215/54
(3) **212/57** ✔
(4) 214/59

Q.55 In a college election fought between two candidates, one candidate got 63% of the total valid votes. If 12% of the votes were invalid and the total votes were 17,500, what is the number of valid votes that the other candidate got?

दो उम्मीदवारों के बीच लड़े गए एक कॉलेज चुनाव में, एक उम्मीदवार को कुल वैध मतों का 63% प्राप्त हुआ। यदि 12% मत अवैध थे और कुल मत 17,500 थे, तो दूसरे उम्मीदवार को प्राप्त वैध मतों की संख्या कितनी है?

(1) 5698 ✔

(2) 5896

(3) 5968

(4) 5588

Q.56 Kirti and Payal invest in a business in the ratio 3 : 7. If the total profit is ₹3,430, then what is the difference between the profits (in ₹) of Kirti and Payal?

कीर्ति और पायल एक व्यवसाय में 3 : 7 के अनुपात में निवेश करती हैं। यदि कुल लाभ ₹3,430 है, तो कीर्ति और पायल के लाभ (₹ में) के बीच का अंतर कितना है?

(1) 1,372 ✔

(2) 1,422

(3) 1,472

(4) 1,272

Q.57 The area of a square plot is 15,376 m^{2}. The length of each side of the plot (in m) is:

एक वर्गाकार भूखंड का क्षेत्रफल 15,376 m^2 है। भूखंड की प्रत्येक भुजा की लंबाई (m में) है:

(1) 142

(2) 122

(3) 134

(4) 124 ✔

Q.58 A number when increased by 50% gives 3360. The number is:

किसी संख्या में 50% की वृद्धि करने पर 3360 प्राप्त होता है। वह संख्या है:

(1) 1120

(2) 2240 ✔

(3) 6720

(4) 4480

Q.59 Which of the following is NOT a pair of coprime numbers?

निम्नलिखित में से कौन-सा सह-अभाज्य संख्याओं का युग्म नहीं है?

(1) (2, 15)

(2) (150, 295) ✔

(3) (13, 10)

(4) (6, 11)

Q.60 Evaluate the following expression.
33 ÷ 9 × 6 − 2 × 3
निम्नलिखित व्यंजक का मान ज्ञात कीजिए।
33 ÷ 9 × 6 − 2 × 3

(1) 18
(2) 15
(3) 19
(4) **16 ✔**

Test of English Language and Comprehension

Q.61 Select the most appropriate ANTONYM of the underlined word in the given sentence.
The committee ratified the proposal after much deliberation.

(1) **Rejected ✔**
(2) Presented
(3) Accepted
(4) Criticised

Q.62 Select the most appropriate set of articles to fill in the blanks.
_____ Nile is in Africa, whereas _____ Amazon flows through South America.

(1) The ; a
(2) **The ; the ✔**
(3) The ; an
(4) A ; the

Q.63 Select the most appropriate article to fill in the blank. If no article is needed, select 'No article required'.
She saw _____ elephant at the zoo yesterday.

(1) **an ✔**
(2) a
(3) the
(4) No article required

Q.64 Parts of a sentence are given below. While the first and last parts (1 and 6) are in the correct place, the remaining parts (labelled P, Q, R and S) are jumbled up. Arrange the parts in the correct order to form a meaningful and coherent sentence.
1 : Moisture is continuously lost
P : and as a result of the stresses
Q : as part of a natural process
R : and strains of daily life
S : leading to a dull, dry and 6 : lifeless complexion.

(1) R S Q P
(2) **Q P R S ✔**
(3) S Q P R
(4) P R S Q

Q.65 One of the four underlined words in the given paragraph is incorrectly spelt. Identify the INCORRECTLY spelt word.
The sudden storm did nothing but exacerbate the travellers' already difficult journey, making the roads slippery and dangerous. They had to navigate carefully, searching for shelter wherever possible. The flickering lantern light seemed to accentuate their exhaustion, casting deep shadows on their weary faces. Trapped in what felt like an obliette of endless rain and darkness, they could only hope for the storm to pass.

(1) Exacerbate
(2) **Obliette ✔**
(3) Navigate
(4) Accentuate

Q.66 Select the correct spelling of the underlined incorrectly spelt word in the given sentence.
In the grand hall of the hotel, it was clear that the venue could comfortably accomodate up to 200 guests for the event. The organisers were excited to see such a large crowd, anticipating a night full of memorable moments.

(1) Acommodate
(2) Accomodatee
(3) **Accommodate ✔**
(4) Accommadate

Q.67 Select the most appropriate option to fill in the blank.
I prepare my meals at home __ I love cooking.

(1) due to
(2) and
(3) **because ✔**
(4) though

Q.68 Select the most appropriate idiom that can substitute the underlined segment in the given sentence.
Despite being warned several times, he continued to ignore the obvious signs, which eventually led to his downfall.

(1) **turn a blind eye ✔**
(2) miss the boat
(3) spill the beans
(4) bite the bullet

QuickSarkari.com | WhatsApp Channel | Telegram: t.me/quick_sarkari

Q.69 Sentences of a paragraph are given below. While the first sentence (S1) is in the correct order, the sentences below it are jumbled up. Arrange the sentences in the correct order to form a meaningful and coherent paragraph.
S1: The human brain is one of the most complex and fascinating organs in the body.
P: Understanding these processes can help develop better treatments for neurological disorders and improve cognitive health.
Q: Research has shown that engaging in mentally stimulating activities, such as puzzles and learning new skills, can enhance brain function.
R: This ability, known as neuroplasticity, plays a crucial role in learning, memory and recovery from injuries.
S: Scientists have discovered that the brain constantly adapts and forms new neural connections throughout life.

(1) SQRP
(2) RSPQ
(3) RSQP
(4) SRQP ✔

Q.70 Select the most appropriate proverb that can substitute the underlined segment in the given sentence.
He keeps making promises about helping the community, but I told him that what you do is more important than what you say.

(1) a rolling stone gathers no moss
(2) every cloud has a silver lining
(3) the pen is mightier than the sword
(4) actions speak louder than words ✔

Q.71 Select the most appropriate option to fill in the blank.
Please keep the plates ____ the shelf.

(1) into
(2) on ✔
(3) at
(4) above

Q.72 Sentences of a paragraph are given below. While the first sentence (S1) is in the correct order, the sentences below it are jumbled up. Arrange the sentences in the correct order to form a meaningful and coherent paragraph.
S1. Savita was lonely in the house.
P. She was very good at that.
Q. She sat all day in a little room off the main drawing room.
R. She would sit on the rug and do needle work.
S. It was a little room with nothing in it but a few chairs and a rug.

(1) Q S R P ✔
(2) R S P Q
(3) P Q R S
(4) S R P Q

Q.73 Select the option that can be used as a one-word substitute for the given group of words.
Insulting God and sacred things

(1) Blasphemy ✔
(2) Anthology
(3) Biography
(4) Defame

Q.74 Select the most appropriate option to fill in the blank.
My dog _____ my cat the whole day.

(1) shadows ✔
(2) swills
(3) reposes
(4) wriggles

Q.75 Select the most appropriate synonym of the given word.
Stentorian

(1) Stealthy
(2) Loud ✔
(3) Violent
(4) Misbegotten

Q.76 Read the given passage and answer the questions that follow.
On a quiet evening in a small coastal town, young Maya sat by the shore, watching the waves crash against the rocks. She had always been fascinated by the ocean, but tonight, a peculiar sight caught her attention. A group of fishermen stood in silence, gazing at their empty nets. The once-thriving fish population had dwindled, leaving them struggling to make a living. Their faces bore expressions of worry, as their livelihoods depended on the sea's generosity.
Maya had heard her grandfather speak about the days when the ocean was abundant with life. Overfishing, pollution and climate change, however, had taken a toll, and now the sea seemed like a shadow of its former self. Determined to make a difference, she began researching sustainable fishing practices. She learned about marine conservation and how small changes—such as regulated fishing, reducing plastic waste and protecting breeding grounds—could restore the ocean's health.
Weeks later, Maya spoke at a town meeting, urging people to adopt responsible fishing methods. Though met with scepticism at first, her passion and determination inspired change. Fishermen started working with environmentalists, and slowly, signs of marine life returning began to emerge. The ocean, like a patient healer, was ready to give back—if only humans treated it with respect and care.
——— What is the ANTONYM of the word 'dwindled' as used in the passage?

(1) Reduced
(2) Weakened
(3) Increased ✔
(4) Disappeared

Q.77 Read the given passage and answer the questions that follow.

On a quiet evening in a small coastal town, young Maya sat by the shore, watching the waves crash against the rocks. She had always been fascinated by the ocean, but tonight, a peculiar sight caught her attention. A group of fishermen stood in silence, gazing at their empty nets. The once-thriving fish population had dwindled, leaving them struggling to make a living. Their faces bore expressions of worry, as their livelihoods depended on the sea's generosity.

Maya had heard her grandfather speak about the days when the ocean was abundant with life. Overfishing, pollution and climate change, however, had taken a toll, and now the sea seemed like a shadow of its former self. Determined to make a difference, she began researching sustainable fishing practices. She learned about marine conservation and how small changes—such as regulated fishing, reducing plastic waste and protecting breeding grounds—could restore the ocean's health.

Weeks later, Maya spoke at a town meeting, urging people to adopt responsible fishing methods. Though met with scepticism at first, her passion and determination inspired change. Fishermen started working with environmentalists, and slowly, signs of marine life returning began to emerge. The ocean, like a patient healer, was ready to give back—if only humans treated it with respect and care.

——— What inference can be drawn from the passage?

(1) The ocean's decline is irreversible.

(2) Fishermen refuse to change their methods.

(3) Small efforts can lead to environmental recovery. ✔

(4) Only governments can solve environmental problems.

Q.78 Read the given passage and answer the questions that follow.

On a quiet evening in a small coastal town, young Maya sat by the shore, watching the waves crash against the rocks. She had always been fascinated by the ocean, but tonight, a peculiar sight caught her attention. A group of fishermen stood in silence, gazing at their empty nets. The once-thriving fish population had dwindled, leaving them struggling to make a living. Their faces bore expressions of worry, as their livelihoods depended on the sea's generosity.

Maya had heard her grandfather speak about the days when the ocean was abundant with life. Overfishing, pollution and climate change, however, had taken a toll, and now the sea seemed like a shadow of its former self. Determined to make a difference, she began researching sustainable fishing practices. She learned about marine conservation and how small changes—such as regulated fishing, reducing plastic waste and protecting breeding grounds—could restore the ocean's health.

Weeks later, Maya spoke at a town meeting, urging people to adopt responsible fishing methods. Though met with scepticism at first, her passion and determination inspired change. Fishermen started working with environmentalists, and slowly, signs of marine life returning began to emerge. The ocean, like a patient healer, was ready to give back—if only humans treated it with respect and care.

——— What is the most suitable title for the passage?

(1) The Fight for Marine Conservation

(2) The Fishermen's Dilemma

(3) Maya and the Lost Ocean ✔

(4) Lessons from the Deep

Q.79 Read the given passage and answer the questions that follow.

On a quiet evening in a small coastal town, young Maya sat by the shore, watching the waves crash against the rocks. She had always been fascinated by the ocean, but tonight, a peculiar sight caught her attention. A group of fishermen stood in silence, gazing at their empty nets. The once-thriving fish population had dwindled, leaving them struggling to make a living. Their faces bore expressions of worry, as their livelihoods depended on the sea's generosity.

Maya had heard her grandfather speak about the days when the ocean was abundant with life. Overfishing, pollution and climate change, however, had taken a toll, and now the sea seemed like a shadow of its former self. Determined to make a difference, she began researching sustainable fishing practices. She learned about marine conservation and how small changes—such as regulated fishing, reducing plastic waste and protecting breeding grounds—could restore the ocean's health.

Weeks later, Maya spoke at a town meeting, urging people to adopt responsible fishing methods. Though met with scepticism at first, her passion and determination inspired change. Fishermen started working with environmentalists, and slowly, signs of marine life returning began to emerge. The ocean, like a patient healer, was ready to give back—if only humans treated it with respect and care.

——— Which option best summarises the passage?

(1) Overfishing and pollution are harming marine ecosystems, with no hope for recovery.

(2) Fishermen struggle with dwindling fish populations, and Maya leads efforts to restore balance. ✔

(3) Maya, a young girl, watches the ocean and learns about marine life.

(4) A town ignores Maya's ideas about conservation, leading to further decline in fishing.

Q.80 Read the given passage and answer the questions that follow.

On a quiet evening in a small coastal town, young Maya sat by the shore, watching the waves crash against the rocks. She had always been fascinated by the ocean, but tonight, a peculiar sight caught her attention. A group of fishermen stood in silence, gazing at their empty nets. The once-thriving fish population had dwindled, leaving them struggling to make a living. Their faces bore expressions of worry, as their livelihoods depended on the sea's generosity.

Maya had heard her grandfather speak about the days when the ocean was abundant with life. Overfishing, pollution and climate change, however, had taken a toll, and now the sea seemed like a shadow of its former self. Determined to make a difference, she began researching sustainable fishing practices. She learned about marine conservation and how small changes—such as regulated fishing, reducing plastic waste and protecting breeding grounds—could restore the ocean's health.

Weeks later, Maya spoke at a town meeting, urging people to adopt responsible fishing methods. Though met with scepticism at first, her passion and determination inspired change. Fishermen started working with environmentalists, and slowly, signs of marine life returning began to emerge. The ocean, like a patient healer, was ready to give back—if only humans treated it with respect and care.

——— What is the tone of the passage?

(1) Indifferent

(2) Pessimistic

(3) Hopeful ✔

(4) Sarcastic

Test of Hindi Language and Comprehension

Q.81 उचित विशेषण से वाक्य पूर्ण करें- इस जगह पर _____ लोग आते हैं।

(1) खेलने

(2) **कई ✔**

(3) जल्दी

(4) कल

Q.82 'वर्तमान समय मे पत्रों का महत्त घठता जा रहा है ' वाक्य के किस भाग में त्रुटि है-

(1) **महत्त घठता ✔**

(2) पत्रों का

(3) जा रहा है

(4) वर्तमान समय

Q.83 उचित कारक चिह्नों से वाक्य पूर्ण करें।
मैं____ उसे बार बार समझाया।

(1) **ने ✔**

(2) कल

(3) से

(4) पर

Q.84 दिये गये वाक्य के किस भाग में त्रुटि है?
हमें प्रकृति की संरक्षण करना चाहिए।

(1) हमें प्रकृति

(2) संरक्षण

(3) **की ✔**

(4) करना चाहिए।

Q.85 निम्न लोकोक्ति का सही अर्थ अंकित कीजिए।
जैसी ओढ़े कामली वैसा ओढ़ा खेस-

(1) जैसा समय आ पड़े उसी के अनुसार अपना रंग बदल लेना चाहिए

(2) जैसा समय आ पड़े उसी के अनुसार अपनी भाषा बदल लेनी चाहिए

(3) जैसा समय आ पड़े उसी के अनुसार अपना उल्लू सीधा कर लेना चाहिए

(4) **जैसा समय आ पड़े उसी के अनुसार अपना रहन-सहन बना लेना चाहिए ✔**

Q.86 उचित क्रिया शब्द से वाक्य पूर्ण करें- बूँद-बूँद से तालाब _____ है।

(1) भरेगी

(2) **भरता ✔**

(3) भरती

(4) भरी

Q.87 निम्नलिखित वाक्यों में से कौन-सा वाक्य क्रम सही है ?

(1) कर रखा था पहले से निश्चय मैंने ऐसा करना ।

(2) ऐसा करना मैंने निश्चय कर रखा था पहले से ।

(3) निश्चय कर रखा था पहले से मैंने ऐसा करना ।

(4) **मैंने ऐसा करना पहले से निश्चय कर रखा था । ✔**

QuickSarkari.com | WhatsApp Channel | Telegram: t.me/quick_sarkari

Q.88 दिये गये वाक्य के किस भाग में त्रुटि है?
पेड़ हमें शुद्ध हवा और चाया प्रदान करते हैं।

(1) चाया प्रदान ✔
(2) शुद्ध हवा और
(3) पेड़ हमें
(4) करते हैं।

Q.89 निम्नलिखित वाक्य खंड को उचित क्रम मे लिखें- 1- हाव-अनुभाव योजना में 2- का पूर्ण वैभव उनकी 3- दिखाई पड़ता है 4- बिहारी की रस व्यंजना

(1) 3, 2, 4, 1
(2) 1, 3, 2, 4
(3) 2, 3, 4, 1
(4) 4, 2, 1, 3 ✔

Q.90 उचित क्रिया विशेषण शब्द से वाक्य पूर्ण करें।
वह _____ सैर पर जाता है।

(1) हर रोज़ ✔
(2) अधिक
(3) जितना
(4) चाहे

Q.91 रेखांकित शब्द का उपयुक्त पर्यायवाची चुनें ।
बारिश के बाद बच्चे झील के किनारे खेलने चले गए।

(1) धूसर
(2) खर
(3) तृण
(4) तट ✔

Q.92 निम्न लोकोक्ति का सही अर्थ अंकित कीजिए।
अपनी गली में कुत्ता भी शेर होता है-

(1) अपने बाग बगीचे में बहादुरी दिखाना
(2) अपनी पत्नी संग बहादुरी दिखाना
(3) अपने रंग महल में बहादुरी दिखाना
(4) अपने गली-मोहल्ले में बहादुरी दिखाना ✔

Q.93 उचित क्रिया शब्द से वाक्य पूर्ण करें- हमने गिलास _____ है।

(1) भरता
(2) भरी
(3) भरेगी
(4) भरा ✔

QuickSarkari.com | WhatsApp Channel | Telegram: t.me/quick_sarkari

Q.94 निम्नलिखित वाक्य में प्रयुक्त अशुद्ध वर्तनी वाले शब्द को चुनिए।
हिमालय की उपतय्का में बसे गाँव अपनी प्राकृतिक सुंदरता और अक्षुण्ण सांस्कृतिक विरासत के लिए प्रसिद्ध हैं तथा आजकल पर्यटकों के आकर्षण का केंद्र बनते जा रहे हैं।

(1) सांस्कृतिक
(2) अक्षुण्ण
(3) पर्यटकों
(4) उपतय्का ✔

Q.95 रेखांकित शब्द का उपयुक्त पर्यायवाची चुनें ।
शस्त्रागार में पुरानी तलवारें सजाकर रखी गई हैं।

(1) जनु
(2) असि ✔
(3) तस्कर
(4) केतन

Q.96 निम्नलिखित गद्यांश के आधार पर दिए गए प्रश्नों के उत्तर दीजिए।
मनुष्य का स्वभाव बहुआयामी होता है, जिसमें कुछ लोग बहिर्मुखी होते हैं तो कुछ अंतर्मुखी। अंतर्मुखी व्यक्ति गहन विचारशील होते हैं, लेकिन उनकी मौन प्रवृत्ति को बहुधा गलत समझा जाता है।प्रत्येक व्यक्ति के मौलिक स्वभाव को स्वीकार करना आवश्यक है। अंतर्मुखी लोग गहन चिंतनशील, सृजनात्मक और सूक्ष्म दृष्टिकोण वाले होते हैं। इतिहास में अनेक वैज्ञानिक, लेखक और कलाकार अंतर्मुखी स्वभाव के रहे हैं, जिन्होंने समाज को नई दिशाएँ दी हैं। समाज की अपेक्षाएँ अंतर्मुखी व्यक्तित्व पर अनावश्यक दबाव डालती हैं, जबकि उनकी एकांतप्रियता उन्हें रचनात्मकता की ओर प्रेरित करती है। आधुनिक मनोविज्ञान भी इस तथ्य को स्वीकार करता है कि अंतर्मुखी और बहिर्मुखी दोनों स्वभाव समाज के लिए आवश्यक हैं। आत्म-सम्मान और व्यक्तिगत स्वतंत्रता बनाए रखने के लिए हमें हर प्रकार के स्वभाव को समान महत्व देना चाहिए।
यदि समाज में अंतर्मुखियों के लिए अधिक स्वीकार्यता होगी, तो वे भी अपनी प्रतिभा को पूर्ण रूप से निखार सकेंगे। इससे समाज अधिक समावेशी और संतुलित बनेगा, जहाँ प्रत्येक व्यक्ति अपनी विशेषताओं के अनुरूप योगदान देंगे।
——— यदि अंतर्मुखी और बहिर्मुखी दोनों स्वभावों को समान रूप से महत्व दिया जाए, तो इसका समाज की समग्र प्रगति पर क्या प्रभाव हो सकता है?

(1) सामाजिक असमानता में वृद्धि हो सकती है
(2) तकनीकी प्रगति धीमी हो सकती है
(3) समाज में अपरिहार्य प्रतिस्पर्धा बढ़ सकती है
(4) समाज का समावेशी विकास हो सकता है| ✔

Q.97 निम्नलिखित गद्यांश के आधार पर दिए गए प्रश्नों के उत्तर दीजिए।
मनुष्य का स्वभाव बहुआयामी होता है, जिसमें कुछ लोग बहिर्मुखी होते हैं तो कुछ अंतर्मुखी। अंतर्मुखी व्यक्ति गहन विचारशील होते हैं, लेकिन उनकी मौन प्रवृत्ति को बहुधा गलत समझा जाता है।प्रत्येक व्यक्ति के मौलिक स्वभाव को स्वीकार करना आवश्यक है। अंतर्मुखी लोग गहन चिंतनशील, सृजनात्मक और सूक्ष्म दृष्टिकोण वाले होते हैं। इतिहास में अनेक वैज्ञानिक, लेखक और कलाकार अंतर्मुखी स्वभाव के रहे हैं, जिन्होंने समाज को नई दिशाएँ दी हैं। समाज की अपेक्षाएँ अंतर्मुखी व्यक्तित्व पर अनावश्यक दबाव डालती हैं, जबकि उनकी एकांतप्रियता उन्हें रचनात्मकता की ओर प्रेरित करती है। आधुनिक मनोविज्ञान भी इस तथ्य को स्वीकार करता है कि अंतर्मुखी और बहिर्मुखी दोनों स्वभाव समाज के लिए आवश्यक हैं। आत्म-सम्मान और व्यक्तिगत स्वतंत्रता बनाए रखने के लिए हमें हर प्रकार के स्वभाव को समान महत्व देना चाहिए।
यदि समाज में अंतर्मुखियों के लिए अधिक स्वीकार्यता होगी, तो वे भी अपनी प्रतिभा को पूर्ण रूप से निखार सकेंगे। इससे समाज अधिक समावेशी और संतुलित बनेगा, जहाँ प्रत्येक व्यक्ति अपनी विशेषताओं के अनुरूप योगदान देंगे।
——— प्रस्तुत गद्यांश के लिए सर्वाधिक उपयुक्त शीर्षक का चयन कीजिए|

(1) मनुष्य के नैसर्गिक स्वभाव का महत्व ✔
(2) मनुष्य के अवचेतन मन का महत्त्व
(3) मनुष्य की स्वाभाविक जिज्ञासाओं का महत्त्व
(4) मनुष्य की महत्त्वाकांक्षाओं का महत्त्व

Q.98 निम्नलिखित गद्यांश के आधार पर दिए गए प्रश्नों के उत्तर दीजिए।

मनुष्य का स्वभाव बहुआयामी होता है, जिसमें कुछ लोग बहिर्मुखी होते हैं तो कुछ अंतर्मुखी। अंतर्मुखी व्यक्ति गहन विचारशील होते हैं, लेकिन उनकी मौन प्रवृत्ति को बहुधा गलत समझा जाता है।प्रत्येक व्यक्ति के मौलिक स्वभाव को स्वीकार करना आवश्यक है। अंतर्मुखी लोग गहन चिंतनशील, सृजनात्मक और सूक्ष्म दृष्टिकोण वाले होते हैं। इतिहास में अनेक वैज्ञानिक, लेखक और कलाकार अंतर्मुखी स्वभाव के रहे हैं, जिन्होंने समाज को नई दिशाएँ दी हैं। समाज की अपेक्षाएँ अंतर्मुखी व्यक्तित्व पर अनावश्यक दबाव डालती हैं, जबकि उनकी एकांतप्रियता उन्हें रचनात्मकता की ओर प्रेरित करती है। आधुनिक मनोविज्ञान भी इस तथ्य को स्वीकार करता है कि अंतर्मुखी और बहिर्मुखी दोनों स्वभाव समाज के लिए आवश्यक हैं। आत्म-सम्मान और व्यक्तिगत स्वतंत्रता बनाए रखने के लिए हमें हर प्रकार के स्वभाव को समान महत्व देना चाहिए।

यदि समाज में अंतर्मुखियों के लिए अधिक स्वीकार्यता होगी, तो वे भी अपनी प्रतिभा को पूर्ण रूप से निखार सकेंगे। इससे समाज अधिक समावेशी और संतुलित बनेगा, जहाँ प्रत्येक व्यक्ति अपनी विशेषताओं के अनुरूप योगदान देंगे।

——— समाज की अपेक्षाएँ अंतर्मुखी व्यक्तियों पर क्या प्रभाव डाल सकती हैं?

(1) सतत् समर्थन

(2) अनिवार्य प्रेरणा

(3) रचनात्मक चिंतन

(4) अनावश्यक दबाव ✔

Q.99 निम्नलिखित गद्यांश के आधार पर दिए गए प्रश्नों के उत्तर दीजिए।

मनुष्य का स्वभाव बहुआयामी होता है, जिसमें कुछ लोग बहिर्मुखी होते हैं तो कुछ अंतर्मुखी। अंतर्मुखी व्यक्ति गहन विचारशील होते हैं, लेकिन उनकी मौन प्रवृत्ति को बहुधा गलत समझा जाता है।प्रत्येक व्यक्ति के मौलिक स्वभाव को स्वीकार करना आवश्यक है। अंतर्मुखी लोग गहन चिंतनशील, सृजनात्मक और सूक्ष्म दृष्टिकोण वाले होते हैं। इतिहास में अनेक वैज्ञानिक, लेखक और कलाकार अंतर्मुखी स्वभाव के रहे हैं, जिन्होंने समाज को नई दिशाएँ दी हैं। समाज की अपेक्षाएँ अंतर्मुखी व्यक्तित्व पर अनावश्यक दबाव डालती हैं, जबकि उनकी एकांतप्रियता उन्हें रचनात्मकता की ओर प्रेरित करती है। आधुनिक मनोविज्ञान भी इस तथ्य को स्वीकार करता है कि अंतर्मुखी और बहिर्मुखी दोनों स्वभाव समाज के लिए आवश्यक हैं। आत्म-सम्मान और व्यक्तिगत स्वतंत्रता बनाए रखने के लिए हमें हर प्रकार के स्वभाव को समान महत्व देना चाहिए।

यदि समाज में अंतर्मुखियों के लिए अधिक स्वीकार्यता होगी, तो वे भी अपनी प्रतिभा को पूर्ण रूप से निखार सकेंगे। इससे समाज अधिक समावेशी और संतुलित बनेगा, जहाँ प्रत्येक व्यक्ति अपनी विशेषताओं के अनुरूप योगदान देंगे।

——— यदि अंतर्मुखी व्यक्तियों को उनकी विशेषताओं के अनुसार कार्य करने का अवसर मिलता है, तो इसका समाज के रचनात्मक क्षेत्रों पर क्या प्रभाव हो सकता है?

(1) संवाद और प्रमाद में वृद्धि

(2) प्रतिस्पर्धा और उद्यमिता में वृद्धि

(3) पारंपरिकता और अनाचार में वृद्धि

(4) नवाचार और उत्पादकता में वृद्धि ✔

Q.100 निम्नलिखित गद्यांश के आधार पर दिए गए प्रश्नों के उत्तर दीजिए।

मनुष्य का स्वभाव बहुआयामी होता है, जिसमें कुछ लोग बहिर्मुखी होते हैं तो कुछ अंतर्मुखी। अंतर्मुखी व्यक्ति गहन विचारशील होते हैं, लेकिन उनकी मौन प्रवृत्ति को बहुधा गलत समझा जाता है।प्रत्येक व्यक्ति के मौलिक स्वभाव को स्वीकार करना आवश्यक है। अंतर्मुखी लोग गहन चिंतनशील, सृजनात्मक और सूक्ष्म दृष्टिकोण वाले होते हैं। इतिहास में अनेक वैज्ञानिक, लेखक और कलाकार अंतर्मुखी स्वभाव के रहे हैं, जिन्होंने समाज को नई दिशाएँ दी हैं। समाज की अपेक्षाएँ अंतर्मुखी व्यक्तित्व पर अनावश्यक दबाव डालती हैं, जबकि उनकी एकांतप्रियता उन्हें रचनात्मकता की ओर प्रेरित करती है। आधुनिक मनोविज्ञान भी इस तथ्य को स्वीकार करता है कि अंतर्मुखी और बहिर्मुखी दोनों स्वभाव समाज के लिए आवश्यक हैं। आत्म-सम्मान और व्यक्तिगत स्वतंत्रता बनाए रखने के लिए हमें हर प्रकार के स्वभाव को समान महत्व देना चाहिए।

यदि समाज में अंतर्मुखियों के लिए अधिक स्वीकार्यता होगी, तो वे भी अपनी प्रतिभा को पूर्ण रूप से निखार सकेंगे। इससे समाज अधिक समावेशी और संतुलित बनेगा, जहाँ प्रत्येक व्यक्ति अपनी विशेषताओं के अनुरूप योगदान देंगे।

——— प्रस्तुत गद्यांश के अनुसार अंतर्मुखी व्यक्तियों की एकांतप्रियता उन्हें किस ओर प्रेरित करती है?

(1) सम्प्रेषण की ओर

(2) रचनात्मकता की ओर ✔

(3) उद्दंडता की ओर

(4) मुखरता की ओर

Labour Officer

Q.101 Which ethical theory in social work emphasises duty and adherence to rules, over consequences?
सामाजिक कार्य में कौन-सा नैतिक सिद्धांत परिणामों की तुलना में कर्तव्य और नियमों के पालन पर बल देता है?

(1) Utilitarianism / उपयोगितावाद
(2) **Deontology / कर्तव्यवाद (डिओन्टोलॉजी) ✔**
(3) Relativism / सापेक्षवाद
(4) Virtue Ethics / सद्गुण नीतिशास्त्र

Q.102 Social work is a systematic way of helping individuals and groups towards better adaption to _____.
सामाजिक कार्य व्यक्तियों और समूहों को _____ के साथ बेहतर अनुकूलन की ओर सहायता करने का एक व्यवस्थित तरीका है।

(1) family / परिवार
(2) colleagues / सहकर्मियों
(3) friends / मित्रों
(4) **society / समाज ✔**

Q.103 What are the main types of labour welfare as categorised under Labour Law?
श्रम कानून के अंतर्गत वर्गीकृत श्रम कल्याण के मुख्य प्रकार कौन-से हैं?

(1) Monetary and non-monetary welfare / मौद्रिक और गैर-मौद्रिक कल्याण
(2) **Statutory and non-statutory welfare / सांविधिक और गैर-सांविधिक कल्याण ✔**
(3) Safety and hazard welfare / सुरक्षा और जोखिम कल्याण
(4) Industrial and individual welfare / औद्योगिक और व्यक्तिगत कल्याण

Q.104 The scope of Labour Welfare Laws in India includes services and amenities that improve the health, _____, and well-being of workers.
भारत में श्रम कल्याण कानूनों के दायरे में वे सेवाएँ और सुविधाएँ शामिल हैं जो श्रमिकों के स्वास्थ्य, _____ और कल्याण में सुधार करती हैं।

(1) integrity / सत्यनिष्ठा
(2) **safety / सुरक्षा ✔**
(3) secrecy / गोपनीयता
(4) privacy / निजता

Q.105 The Indian Trade Union Act, 1926, was a result of recommendations made by the:
भारतीय व्यापार संघ अधिनियम, 1926 किसके द्वारा की गई सिफारिशों का परिणाम था?

(1) Trade Union Congress / ट्रेड यूनियन कांग्रेस
(2) Indian Industrial Commission / भारतीय औद्योगिक आयोग
(3) **Royal Commission on Labour in India / भारत में श्रम पर शाही आयोग ✔**
(4) National Planning Committee / राष्ट्रीय योजना समिति

Q.106 Which provision of the Industrial Disputes Act,1947 specifically deals with setting up of Grievance Settlement Authorities and reference of certain individual disputes to such authorities?

औद्योगिक विवाद अधिनियम, 1947 का कौन-सा प्रावधान विशेष रूप से शिकायत निवारण प्राधिकरणों की स्थापना और कुछ व्यक्तिगत विवादों को ऐसे प्राधिकरणों को संदर्भित करने से संबंधित है?

(1) 9C ✔

(2) 9A

(3) 8B

(4) 8A

Q.107 Which legislation refers to the laws designed to improve the working conditions, rights, and well being of employees in India?

कौन-सा विधान भारत में कर्मचारियों की कार्य परिस्थितियों, अधिकारों और कल्याण में सुधार के लिए बनाए गए कानूनों को संदर्भित करता है?

(1) Political welfare legislation / राजनीतिक कल्याण विधान

(2) Labour welfare legislation / श्रम कल्याण विधान ✔

(3) Economic welfare legislation / आर्थिक कल्याण विधान

(4) Environmental welfare legislation / पर्यावरणीय कल्याण विधान

Q.108 Which Provision of Occupational Safety, Health and Working Conditions Code, 2020, deals with Responsibility of Employer for maintaining health, safety and working conditions?

व्यावसायिक सुरक्षा, स्वास्थ्य और कार्य दशा संहिता, 2020 का कौन-सा प्रावधान स्वास्थ्य, सुरक्षा और कार्य दशाओं को बनाए रखने के लिए नियोक्ता के उत्तरदायित्व से संबंधित है?

(1) Section 25 / धारा 25

(2) Section 22 / धारा 22

(3) Section 23 / धारा 23 ✔

(4) Section 24 / धारा 24

Q.109 Occupational diseases are listed under which Schedule of Occupational Safety, Health and Working Conditions Code, 2020?

व्यावसायिक रोगों को व्यावसायिक सुरक्षा, स्वास्थ्य और कार्य दशा संहिता, 2020 की किस अनुसूची के अंतर्गत सूचीबद्ध किया गया है?

(1) Fourth Schedule / चौथी अनुसूची

(2) Second Schedule / दूसरी अनुसूची

(3) First Schedule / पहली अनुसूची ✔

(4) Third Schedule / तीसरी अनुसूची

Q.110 What is the primary focus of the human relations approach in handling industrial disputes?

औद्योगिक विवादों के निपटान में मानवीय संबंध दृष्टिकोण का प्राथमिक केंद्र-बिंदु क्या है?

(1) Increasing profitability through good governance / सुशासन के माध्यम से लाभप्रदता बढ़ाना

(2) Enhancing employer-employee relationships / नियोक्ता-कर्मचारी संबंधों को सुदृढ़ करना ✔

(3) Reducing government intervention / सरकारी हस्तक्षेप को कम करना

(4) Legal compliance and misgovernance / विधिक अनुपालन और कुशासन

Q.111 Among the following Conventions of ILO, which deals with Occupational Safety and Health Convention?

ILO के निम्नलिखित अभिसमयों में से कौन-सा अभिसमय व्यावसायिक सुरक्षा और स्वास्थ्य अभिसमय से संबंधित है?

(1) Convention No. 155 / अभिसमय संख्या 155 ✔

(2) Convention No. 145 / अभिसमय संख्या 145

(3) Convention No. 157 / अभिसमय संख्या 157

(4) Convention No. 152 / अभिसमय संख्या 152

Q.112 Among the following legislations, which is enacted to mitigate the effect of industrial accidents?

निम्नलिखित विधानों में से कौन-सा औद्योगिक दुर्घटनाओं के प्रभाव को कम करने के लिए अधिनियमित किया गया है?

(1) Employees Compensation Act, 1936 / कर्मचारी प्रतिकर अधिनियम, 1936

(2) Workmen's Compensation Act, 1923 / कर्मकार प्रतिकर अधिनियम, 1923

(3) Factories Act, 1948 / कारखाना अधिनियम, 1948 ✔

(4) Industrial Disputes Act, 1947 / औद्योगिक विवाद अधिनियम, 1947

Q.113 What are the strategies involved in social work?

सामाजिक कार्य में कौन-सी रणनीतियाँ शामिल होती हैं?

(1) Counseling, Education, Case management / परामर्श, शिक्षा, केस प्रबंधन ✔

(2) Selling, Education, Case management / विक्रय, शिक्षा, केस प्रबंधन

(3) Education, Community Service, File management / शिक्षा, सामुदायिक सेवा, फाइल प्रबंधन

(4) Negotiation, Arbitration, File management / वार्ता, मध्यस्थता, फाइल प्रबंधन

Q.114 Which of the following is NOT an international convention related to social work practice and action?

निम्नलिखित में से कौन-सा सामाजिक कार्य अभ्यास और कार्रवाई से संबंधित अंतर्राष्ट्रीय अभिसमय नहीं है?

(1) Universal Declaration of Human Rights / मानव अधिकारों की सार्वभौम घोषणा

(2) The International Covenant on Economic, Social and Cultural Rights / आर्थिक, सामाजिक और सांस्कृतिक अधिकारों पर अंतर्राष्ट्रीय प्रसंविदा

(3) The United Nation Commission on International Trade Law / अंतर्राष्ट्रीय व्यापार कानून पर संयुक्त राष्ट्र आयोग

(4) The International Covenant on Civil and Political Rights / नागरिक और राजनीतिक अधिकारों पर अंतर्राष्ट्रीय प्रसंविदा ✔

Q.115 Which of the following reasons amounted to the evolution of Labour Laws in India?

निम्नलिखित में से कौन-से कारण भारत में श्रम कानूनों के विकास के लिए उत्तरदायी थे?

(1) To ensure high cost of labourers / श्रमिकों की उच्च लागत सुनिश्चित करना

(2) To protect the interest of the labourers / श्रमिकों के हितों की रक्षा करना ✔

(3) To ensure violation of the rights of the labourers / श्रमिकों के अधिकारों का उल्लंघन सुनिश्चित करना

(4) To support right to unorganise / असंगठित रहने के अधिकार का समर्थन करना

Q.116 Which of the following constitutes a method of recognition of Trade Union?

निम्नलिखित में से कौन-सा व्यापार संघ की मान्यता की एक पद्धति है?

(1) Involuntary recognition / अनैच्छिक मान्यता

(2) Recognition by Mismanagement / कुप्रबंधन द्वारा मान्यता

(3) Statutory recognition / सांविधिक मान्यता ✔

(4) Secondary recognition / द्वितीयक मान्यता

Q.117 Principles of _____ and social justice are fundamental to social work.

_____ और सामाजिक न्याय के सिद्धांत सामाजिक कार्य के मूल आधार हैं।

(1) criminal rights / आपराधिक अधिकारों

(2) civil rights / नागरिक अधिकारों

(3) natural rights / प्राकृतिक अधिकारों

(4) human rights / मानव अधिकारों ✔

Q.118 Among the following Conventions, which is the ILO social security Convention?

निम्नलिखित अभिसमयों में से कौन-सा ILO का सामाजिक सुरक्षा अभिसमय है?

(1) The Social Security (Minimum Standards) Convention, 1953 (No. 104) / सामाजिक सुरक्षा (न्यूनतम मानक) अभिसमय, 1953 (संख्या 104)

(2) The Social Security (Minimum Standards) Convention, 1954 (No. 105) / सामाजिक सुरक्षा (न्यूनतम मानक) अभिसमय, 1954 (संख्या 105)

(3) The Social Security (Minimum Standards) Convention, 1951 (No. 98) / सामाजिक सुरक्षा (न्यूनतम मानक) अभिसमय, 1951 (संख्या 98)

(4) The Social Security (Minimum Standards) Convention, 1952 (No. 102) / सामाजिक सुरक्षा (न्यूनतम मानक) अभिसमय, 1952 (संख्या 102) ✔

Q.119 The basic aim of industrial health is:

औद्योगिक स्वास्थ्य का मूल उद्देश्य है:

(1) protection from accidents / दुर्घटनाओं से सुरक्षा

(2) curative or symptomatic medicine / उपचारात्मक या लाक्षणिक चिकित्सा

(3) prevention against injury / चोट से बचाव

(4) protection and prevention of diseases / रोगों से सुरक्षा और उनकी रोकथाम ✔

Q.120 Which theory of labour welfare emphasises that welfare measures are essential to maintain industrial peace?

श्रम कल्याण का कौन-सा सिद्धांत इस बात पर बल देता है कि औद्योगिक शांति बनाए रखने के लिए कल्याणकारी उपाय आवश्यक हैं?

(1) Philanthropic Theory / परोपकारी सिद्धांत

(2) Public Relations Theory / जनसंपर्क सिद्धांत

(3) Placating Theory / तुष्टीकरण सिद्धांत ✔

(4) Religious Theory / धार्मिक सिद्धांत

Q.121 What does the concept of tripartism in industrial relations involve?

औद्योगिक संबंधों में त्रिपक्षीयता की अवधारणा में क्या शामिल है?

(1) A system where only employees and employers negotiate / एक ऐसी प्रणाली जिसमें केवल कर्मचारी और नियोक्ता वार्ता करते हैं

(2) Collaboration between employees, employers, and the government / कर्मचारियों, नियोक्ताओं और सरकार के बीच सहयोग ✔

(3) A global agreement between three different countries / तीन अलग-अलग देशों के बीच एक वैश्विक समझौता

(4) Partnership among three multinational companies / तीन बहुराष्ट्रीय कंपनियों के बीच साझेदारी

Q.122 Which of the following describes the Human Resource Information System?

निम्नलिखित में से कौन-सा कथन मानव संसाधन सूचना प्रणाली का वर्णन करता है?

(1) It is a type of malware that destroys the organisation's employee related information. / यह एक प्रकार का मैलवेयर है जो संगठन की कर्मचारी संबंधी जानकारी को नष्ट कर देता है।

(2) It is a cyber security threat that disrupts smooth functioning of the Human Resource system. / यह एक साइबर सुरक्षा खतरा है जो मानव संसाधन प्रणाली के सुचारु संचालन को बाधित करता है।

(3) It is a software solution that is used to collect, manage, store, and process an organisation's employee information. / यह एक सॉफ्टवेयर समाधान है जिसका उपयोग किसी संगठन की कर्मचारी संबंधी जानकारी को एकत्र करने, प्रबंधित करने, संग्रहीत करने और संसाधित करने के लिए किया जाता है। ✔

(4) It is a hardware solution that is used to collect, manage, store, and process an organisation's employee information. / यह एक हार्डवेयर समाधान है जिसका उपयोग किसी संगठन की कर्मचारी संबंधी जानकारी को एकत्र करने, प्रबंधित करने, संग्रहीत करने और संसाधित करने के लिए किया जाता है।

Q.123 Where can a bill for the Amendment of the Constitution of India be introduced?

भारत के संविधान के संशोधन के लिए विधेयक कहाँ पुरःस्थापित किया जा सकता है?

(1) State Legislature / राज्य विधानमंडल

(2) Municipalities / नगरपालिकाएँ

(3) Panchayat / पंचायत

(4) Either house of the Parliament / संसद का कोई भी सदन ✔

Q.124 Which of the following is a primary cause of conflict in industrial relations?.

निम्नलिखित में से कौन-सा औद्योगिक संबंधों में संघर्ष का एक प्राथमिक कारण है?

(1) Differences in political ideologies / राजनीतिक विचारधाराओं में मतभेद

(2) Lack of recreational facilities / मनोरंजन सुविधाओं का अभाव

(3) Wage disputes and working conditions / वेतन विवाद और कार्य दशाएँ ✔

(4) Advancement of technology / प्रौद्योगिकी की उन्नति

Q.125 Which of the following is an example of an HRD intervention?

निम्नलिखित में से कौन-सा HRD हस्तक्षेप का एक उदाहरण है?

(1) Cost reduction strategies and productivity / लागत में कमी की रणनीतियाँ और उत्पादकता

(2) Leadership development programs / नेतृत्व विकास कार्यक्रम ✔

(3) Equipment procurement and policies / उपकरण खरीद और नीतियाँ

(4) Outsourcing of HR functions / HR कार्यों की आउटसोर्सिंग

Q.126 Which of the following is NOT a feature of an inter-union rivalry?

निम्नलिखित में से कौन-सी अंतर-संघ प्रतिद्वंद्विता की विशेषता नहीं है?

(1) Collective goal of achieving best possible working conditions / सर्वोत्तम संभव कार्य दशाएँ प्राप्त करने का सामूहिक लक्ष्य ✔

(2) Leads to fragmented labour movement / विखंडित श्रम आंदोलन को जन्म देती है

(3) Competition or conflicts between different trade unions / विभिन्न व्यापार संघों के बीच प्रतिस्पर्धा या संघर्ष

(4) Weakens collective bargaining power / सामूहिक सौदेबाजी की शक्ति को कमजोर करती है

Q.127 Regular HR audits help identify and mitigate _____ associated with HR practices.

नियमित HR लेखापरीक्षा HR प्रथाओं से जुड़े _____ की पहचान करने और उन्हें कम करने में सहायता करती है।

(1) security / सुरक्षा

(2) dependability / निर्भरता

(3) reliability / विश्वसनीयता

(4) **risks / जोखिमों ✔**

Q.128 What is the minimum requirement of members for registering a trade union under the Trade Union Act, 1926?

व्यापार संघ अधिनियम, 1926 के अंतर्गत किसी व्यापार संघ के पंजीकरण के लिए सदस्यों की न्यूनतम आवश्यकता कितनी है?

(1) Any eleven or more members / कोई भी ग्यारह या अधिक सदस्य

(2) **Any seven or more members / कोई भी सात या अधिक सदस्य ✔**

(3) Any twelve or more members / कोई भी बारह या अधिक सदस्य

(4) Any nine or more members / कोई भी नौ या अधिक सदस्य

Q.129 Under the Payment of Bonus Act, 1965, a worker is disqualified for bonus if they are dismissed for _____.

बोनस संदाय अधिनियम, 1965 के अंतर्गत, कोई कर्मकार बोनस के लिए अयोग्य हो जाता है यदि उसे _____ के लिए पदच्युत किया जाता है।

(1) **a riotous behaviour / उपद्रवी व्यवहार ✔**

(2) misrepresentation / मिथ्या निरूपण

(3) a mistake / किसी गलती

(4) a disagreement / किसी असहमति

Q.130 Identify the effect of an Industrial Dispute in society from the following.

निम्नलिखित में से समाज में औद्योगिक विवाद के प्रभाव की पहचान करें।

(1) Decrease in inflation / मुद्रास्फीति में कमी

(2) Decrease in cost of living / जीवन-यापन की लागत में कमी

(3) Promotion of economic welfare of the nation / राष्ट्र के आर्थिक कल्याण को बढ़ावा

(4) **Loss of production, income, and employment / उत्पादन, आय और रोजगार की हानि ✔**

Q.131 What is the primary objective of an industrial relations system?

औद्योगिक संबंध प्रणाली का प्राथमिक उद्देश्य क्या है?

(1) To boost corporate profits and productivity / कॉर्पोरेट लाभ और उत्पादकता को बढ़ाना

(2) To enforce strict management policies and good governance / सख्त प्रबंधन नीतियों और सुशासन को लागू करना

(3) **To ensure industrial peace and productivity / औद्योगिक शांति और उत्पादकता सुनिश्चित करना ✔**

(4) To increase worker efficiency and welfare / कर्मकार दक्षता और कल्याण में वृद्धि करना

Q.132 What was the primary reason for the introduction of the Indian Trade Union Act, 1926, as per its Preamble?

भारतीय व्यापार संघ अधिनियम, 1926 की प्रस्तावना के अनुसार, इसे लागू करने का प्राथमिक कारण क्या था?

(1) To encourage employers to form associations and ensure collective baragining / नियोक्ताओं को संघ बनाने के लिए प्रोत्साहित करना और सामूहिक सौदेबाजी सुनिश्चित करना

(2) To formalise the legal framework for the registration of Trade Unions and to define the law relating to registered Trade Unions / व्यापार संघों के पंजीकरण के लिए विधिक ढाँचे को औपचारिक रूप देना और पंजीकृत व्यापार संघों से संबंधित विधि को परिभाषित करना ✔

(3) To promote foreign trade and trade unionism in the country to protect employees / कर्मचारियों की सुरक्षा के लिए देश में विदेशी व्यापार और व्यापार संघवाद को बढ़ावा देना

(4) To improve the condition of labour in India / भारत में श्रम की स्थिति में सुधार करना

Q.133 What does the scope of industrial disputes primarily include?

औद्योगिक विवादों के दायरे में मुख्य रूप से क्या शामिल है?

(1) Personal disputes among employees and employers / कर्मचारियों और नियोक्ताओं के बीच व्यक्तिगत विवाद

(2) Conflicts related to employment terms and conditions / रोजगार के निबंधनों और शर्तों से संबंधित संघर्ष ✔

(3) Salary negotiations of CEOs and employees / CEO और कर्मचारियों के वेतन संबंधी वार्ता

(4) Recruitment of national and foreign workers / राष्ट्रीय और विदेशी कर्मकारों की भर्ती

Q.134 What is the main function of a Human Resource Information System?

मानव संसाधन सूचना प्रणाली का मुख्य कार्य क्या है?

(1) Enhancing marketing strategies and sharing knowledge / विपणन रणनीतियों को बेहतर बनाना और ज्ञान साझा करना

(2) Monitoring financial accounts and ensuring transparency / वित्तीय खातों की निगरानी करना और पारदर्शिता सुनिश्चित करना

(3) Storing and managing employee-related information / कर्मचारी संबंधी जानकारी का भंडारण और प्रबंधन करना ✔

(4) Controlling inventory systems and accounting effectively / इन्वेंट्री प्रणालियों को नियंत्रित करना और प्रभावी लेखांकन करना

Q.135 Which of the following is a Human Resource Development Mechanism?

निम्नलिखित में से कौन-सा एक मानव संसाधन विकास तंत्र है?

(1) Inventory control / इन्वेंट्री नियंत्रण

(2) Employee counselling / कर्मचारी परामर्श ✔

(3) Financial audits / वित्तीय लेखापरीक्षा

(4) IT system upgrades / IT प्रणाली उन्नयन

Q.136 Which of the following is NOT a Human Resource model?

निम्नलिखित में से कौन-सा मानव संसाधन मॉडल नहीं है?

(1) The Ulrich Model / उलरिच मॉडल

(2) The Warwick Model / वारविक मॉडल

(3) The Harvard Model / हार्वर्ड मॉडल

(4) The HR nugatory Chain / HR न्यूगेटरी चेन ✔

Q.137 Human resource management (HRM) is a strategic method for organising, leading, and growing a company's staff, which includes hiring, choosing, _____ performance management, and professional growth.

मानव संसाधन प्रबंधन (HRM) किसी कंपनी के कर्मचारियों को संगठित करने, नेतृत्व प्रदान करने और विकसित करने की एक रणनीतिक पद्धति है, जिसमें भर्ती, चयन, _____ निष्पादन प्रबंधन और व्यावसायिक विकास शामिल हैं।

(1) wagering / दाँव लगाना
(2) gambling / जुआ
(3) **training / प्रशिक्षण ✔**
(4) bluffing / झाँसा देना

Q.138 Which of the following is NOT an approach to promote industrial relations?

निम्नलिखित में से कौन-सा औद्योगिक संबंधों को बढ़ावा देने का दृष्टिकोण नहीं है?

(1) Marxist approach / मार्क्सवादी दृष्टिकोण
(2) Unitary approach / एकात्मक दृष्टिकोण
(3) **Non-Gandhian approach / गैर-गांधीवादी दृष्टिकोण ✔**
(4) Pluralist approach / बहुलवादी दृष्टिकोण

Q.139 Bipartism is a system of industrial relations, where social and _____ issues are discussed between trade unions and management.

द्विपक्षीयता औद्योगिक संबंधों की एक प्रणाली है, जिसमें व्यापार संघों और प्रबंधन के बीच सामाजिक और _____ मुद्दों पर चर्चा की जाती है।

(1) international / अंतर्राष्ट्रीय
(2) **labour / श्रम ✔**
(3) business / व्यावसायिक
(4) emotional / भावनात्मक

Q.140 Which historic case marks the origin of the passing of the Trade Unions Act in India?

कौन-सा ऐतिहासिक मामला भारत में व्यापार संघ अधिनियम के पारित होने का उद्गम माना जाता है?

(1) **Buckingham Mill case / बकिंघम मिल मामला ✔**
(2) Lee vs Lee's Air Farming case / ली बनाम ली'ज़ एयर फार्मिंग मामला
(3) Vishaka's case / विशाखा मामला
(4) Kesavananda Bharati's case / केशवानंद भारती मामला

Q.141 Under the Trade Unions Act, 1926, which section grants registered trade unions immunity from certain civil suits?

व्यापार संघ अधिनियम, 1926 के अंतर्गत कौन-सी धारा पंजीकृत व्यापार संघों को कुछ सिविल वादों से उन्मुक्ति प्रदान करती है?

(1) Section 20 / धारा 20
(2) Section 13 / धारा 13
(3) **Section 18 / धारा 18 ✔**
(4) Section 17 / धारा 17

Q.142 Which principle of natural justice ensures that no one can be a judge in their own cause?

नैसर्गिक न्याय का कौन-सा सिद्धांत यह सुनिश्चित करता है कि कोई भी व्यक्ति अपने स्वयं के मामले में न्यायाधीश नहीं हो सकता?

(1) Res judicata / पूर्व-न्याय (Res judicata)
(2) Doctrine of estoppel / विबंध का सिद्धांत
(3) **Nemo judex in causa sua ✔**
(4) Audi alteram partem

Q.143 Which of the following is considered as an exception to the principle of Natural Justice?

निम्नलिखित में से किसे नैसर्गिक न्याय के सिद्धांत का अपवाद माना जाता है?

(1) Doctrine of Reasoned Decision / तर्कसंगत निर्णय का सिद्धांत

(2) Doctrine of Bias / पक्षपात का सिद्धांत

(3) Doctrine of Necessity / आवश्यकता का सिद्धांत ✔

(4) Doctrine of Hearing / सुनवाई का सिद्धांत

Q.144 The principle of 'audi alteram partem' ensures that:

'audi alteram partem' का सिद्धांत यह सुनिश्चित करता है कि:

(1) a decision can be made without evidence / बिना साक्ष्य के निर्णय लिया जा सकता है

(2) the decision is final / निर्णय अंतिम है

(3) both parties have the right to be heard / दोनों पक्षों को सुनवाई का अधिकार है ✔

(4) a judge cannot overturn previous decisions / न्यायाधीश पूर्व निर्णयों को पलट नहीं सकता

Q.145 A certificate of registration is issued under which of the following provisions of the Trade Unions Act, 1926?

व्यापार संघ अधिनियम, 1926 के निम्नलिखित में से किस प्रावधान के अंतर्गत पंजीकरण प्रमाणपत्र जारी किया जाता है?

(1) Section 9 / धारा 9 ✔

(2) Section 11 / धारा 11

(3) Section 8 / धारा 8

(4) Section 10 / धारा 10

Q.146 Which of the following is NOT depicted under the Rules of a Trade Union, according to section 6 of the Trade Union Act 1926?

व्यापार संघ अधिनियम 1926 की धारा 6 के अनुसार, निम्नलिखित में से कौन-सा व्यापार संघ के नियमों में वर्णित नहीं है?

(1) The name of trade union / व्यापार संघ का नाम

(2) The whole of the purposes for which the general funds of the trade union shall be applicable / वे सभी प्रयोजन जिनके लिए व्यापार संघ की सामान्य निधि प्रयोज्य होगी

(3) The manner in which the trade union may not be dissolved / वह रीति जिससे व्यापार संघ का विघटन नहीं किया जा सकता ✔

(4) The whole of the objects for which the trade union has been established / वे सभी उद्देश्य जिनके लिए व्यापार संघ की स्थापना की गई है

Q.147 As per The Employees' Provident Funds and Miscellaneous Provisions Act, 1952, who contributes an equal share to the Employees Provident Fund?.

कर्मचारी भविष्य निधि और प्रकीर्ण उपबंध अधिनियम, 1952 के अनुसार, कर्मचारी भविष्य निधि में समान अंशदान कौन करता है?

(1) Employee only / केवल कर्मचारी

(2) State Government / राज्य सरकार

(3) Employee and employer / कर्मचारी और नियोक्ता ✔

(4) Employer only / केवल नियोक्ता

Q.148 What is the penalty for an illegal strike under the Industrial Disputes Act, 1947?

औद्योगिक विवाद अधिनियम, 1947 के अंतर्गत अवैध हड़ताल के लिए क्या दंड है?

(1) ₹10,000 fine or one year imprisonment / ₹10,000 जुर्माना या एक वर्ष का कारावास

(2) ₹50 fine and imprisonment up to one month / ₹50 जुर्माना और एक महीने तक का कारावास ✔

(3) ₹5,000 fine or one year imprisonment / ₹5,000 जुर्माना या एक वर्ष का कारावास

(4) ₹1,000 fine or imprisonment up to one month / ₹1,000 जुर्माना या एक महीने तक का कारावास

Q.149 What is issued to the employer when a motor transport undertaking is registered under The Motor Transport Workers Act,1961?

मोटर परिवहन कर्मकार अधिनियम, 1961 के अंतर्गत किसी मोटर परिवहन उपक्रम के पंजीकृत होने पर नियोक्ता को क्या जारी किया जाता है?

(1) A handwritten document of registration / पंजीकरण का एक हस्तलिखित दस्तावेज़

(2) An email of registration / पंजीकरण का एक ईमेल

(3) A speed post of a letter stating registration / पंजीकरण की सूचना देने वाले पत्र की स्पीड पोस्ट

(4) A certificate of registration / पंजीकरण प्रमाणपत्र ✔

Q.150 The enforcement of collective bargaining agreements is primarily ensured by:

सामूहिक सौदेबाजी समझौतों का प्रवर्तन मुख्य रूप से किसके द्वारा सुनिश्चित किया जाता है?

(1) government committees and other bodies / सरकारी समितियों और अन्य निकायों द्वारा

(2) employer goodwill and welfare approach / नियोक्ता की सद्भावना और कल्याणकारी दृष्टिकोण द्वारा

(3) arbitration and legal mechanisms / मध्यस्थता और विधिक तंत्र द्वारा ✔

(4) informal employee negotiations / अनौपचारिक कर्मचारी वार्ताओं द्वारा

Q.151 Under which Article of the Constitution of India can the President of India proclaim a National Emergency?

भारत के संविधान के किस अनुच्छेद के अंतर्गत भारत के राष्ट्रपति राष्ट्रीय आपातकाल की उद्घोषणा कर सकते हैं?

(1) Article 356 / अनुच्छेद 356

(2) Article 352 / अनुच्छेद 352 ✔

(3) Article 368 / अनुच्छेद 368

(4) Article 360 / अनुच्छेद 360

Q.152 What type of Bias is constituted when a decision-maker intends to gain a financial benefit, no matter how small, from the outcome of the case?

जब कोई निर्णयकर्ता मामले के परिणाम से कोई वित्तीय लाभ, चाहे वह कितना भी छोटा क्यों न हो, प्राप्त करने का इरादा रखता है, तो किस प्रकार का पक्षपात गठित होता है?

(1) Confirmation Bias / पुष्टिकरण पक्षपात

(2) Historical Bias / ऐतिहासिक पक्षपात

(3) Selection Bias / चयन पक्षपात

(4) Pecuniary Bias / आर्थिक (धन संबंधी) पक्षपात ✔

Q.153 A supportive HRD culture promotes:

एक सहायक HRD संस्कृति बढ़ावा देती है:

(1) quick dismissals of underperforming employees / कम प्रदर्शन करने वाले कर्मचारियों की त्वरित बर्खास्तगी को

(2) open communication and trust / खुले संचार और विश्वास को ✔

(3) segregated work environments / पृथक्कृत कार्य वातावरण को

(4) an increased workload without rewards / बिना पुरस्कार के बढ़े हुए कार्यभार को

Q.154 Under the Trade Unions Act, 1926, within how many days must a copy of every alteration made in the rules of a registered Trade Union be sent to the Registrar?

व्यापार संघ अधिनियम, 1926 के अंतर्गत, किसी पंजीकृत व्यापार संघ के नियमों में किए गए प्रत्येक परिवर्तन की एक प्रति रजिस्ट्रार को कितने दिनों के भीतर भेजी जानी चाहिए?

(1) 7 days / 7 दिन

(2) 60 days / 60 दिन

(3) 30 days / 30 दिन

(4) 15 days / 15 दिन ✔

Q.155 Human Resource Accounting is a type of accounting that seeks to determine the cost and _____ of the people, also known as human capital, working in an organisation.

मानव संसाधन लेखांकन एक प्रकार का लेखांकन है जो किसी संगठन में कार्यरत लोगों, जिन्हें मानव पूँजी भी कहा जाता है, की लागत और _____ निर्धारित करने का प्रयास करता है।

(1) finance / वित्त

(2) budget / बजट

(3) value / मूल्य ✔

(4) revenue / राजस्व

Q.156 Which provision of the Industrial Disputes Act, 1947, deals with the Reference of disputes to Boards, Courts, or Tribunals?

औद्योगिक विवाद अधिनियम, 1947 का कौन-सा प्रावधान विवादों को बोर्डों, न्यायालयों या अधिकरणों को निर्देशित करने से संबंधित है?

(1) Section 10 / धारा 10 ✔

(2) Section 8 / धारा 8

(3) Section 7 / धारा 7

(4) Section 9 / धारा 9

Q.157 Under the Trade Unions Act, 1926, how much prior notice must the Registrar give to a trade union before withdrawing or cancelling its registration, except when done at the union's request?

व्यापार संघ अधिनियम, 1926 के अंतर्गत, संघ के अनुरोध पर किए जाने की स्थिति को छोड़कर, रजिस्ट्रार को किसी व्यापार संघ का पंजीकरण वापस लेने या रद्द करने से पहले उसे कितनी पूर्व सूचना देनी होगी?

(1) No notice is required / किसी सूचना की आवश्यकता नहीं है

(2) One month / एक महीना

(3) Three months / तीन महीने

(4) Two months / दो महीने ✔

Q.158 What is the term period of imprisonment in case of failure to pay any amount of maternity benefit to a woman entitled under the Maternity Benefit Act,1961?

प्रसूति प्रसुविधा अधिनियम, 1961 के अंतर्गत हकदार किसी महिला को प्रसूति प्रसुविधा की कोई राशि का भुगतान करने में विफल रहने की स्थिति में कारावास की अवधि क्या है?

(1) Minimum nine months imprisonment to one year / न्यूनतम नौ महीने से एक वर्ष तक का कारावास

(2) Minimum three months imprisonment to one year / न्यूनतम तीन महीने से एक वर्ष तक का कारावास ✔

(3) Minimum one year imprisonment to two years / न्यूनतम एक वर्ष से दो वर्ष तक का कारावास

(4) Minimum six months imprisonment to one year / न्यूनतम छह महीने से एक वर्ष तक का कारावास

QuickSarkari.com | WhatsApp Channel | Telegram: t.me/quick_sarkari

Q.159 'B' borrowed ₹10,000 from 'A' on the condition of repayment within six months, however, after six months 'B' refuses to pay. 'A' approached civil court for recovery of the said debt. 'C', a good friend of 'B', happens to be the judge of that civil court.
In light of the stated scenario, identify the type of Bias that may be exercised by 'C', if he deals with the case, since he is a good friend of 'B'.
'B' ने छह महीने के भीतर चुकाने की शर्त पर 'A' से ₹10,000 उधार लिए, परंतु छह महीने के बाद 'B' भुगतान करने से इनकार कर देता है। 'A' उक्त ऋण की वसूली के लिए सिविल न्यायालय में जाता है। 'B' का एक घनिष्ठ मित्र 'C' संयोग से उस सिविल न्यायालय का न्यायाधीश है।
उपर्युक्त परिदृश्य के आलोक में, उस प्रकार के पक्षपात की पहचान करें जो 'C' द्वारा किया जा सकता है, यदि वह इस मामले की सुनवाई करता है, क्योंकि वह 'B' का घनिष्ठ मित्र है।

(1) Bias on Account of Obstinacy / हठधर्मिता के कारण पक्षपात
(2) Reporting Bias / रिपोर्टिंग पक्षपात
(3) Departmental Bias / विभागीय पक्षपात
(4) Personal Bias / व्यक्तिगत पक्षपात ✔

Q.160 What is classified as an industrial dispute under the Industrial Disputes Act, 1947?
औद्योगिक विवाद अधिनियम, 1947 के अंतर्गत औद्योगिक विवाद के रूप में किसे वर्गीकृत किया गया है?

(1) Individual conflicts related to employment and governance / रोजगार और शासन से संबंधित व्यक्तिगत संघर्ष
(2) Any dispute or difference between employers and employers, connected with the employment or non-employment or the terms of employment or with the conditions of labour, of any person / नियोक्ताओं और नियोक्ताओं के बीच कोई विवाद या मतभेद, जो किसी व्यक्ति के नियोजन या अनियोजन या नियोजन के निबंधनों या श्रम की दशाओं से संबंधित हो ✔
(3) Personal disagreements between employees and employers / कर्मचारियों और नियोक्ताओं के बीच व्यक्तिगत असहमति
(4) Conflicts between employees, employers, and local authorities / कर्मचारियों, नियोक्ताओं और स्थानीय प्राधिकरणों के बीच संघर्ष

Q.161 What is the extent of applicability of the Factories Act, 1948?
कारखाना अधिनियम, 1948 की प्रयोज्यता का विस्तार क्या है?

(1) It extends to the whole of Karnataka. / इसका विस्तार संपूर्ण कर्नाटक पर है।
(2) It extends to the whole of India. / इसका विस्तार संपूर्ण भारत पर है। ✔
(3) It extends to the whole of Bihar. / इसका विस्तार संपूर्ण बिहार पर है।
(4) It extends to whole of Bengal. / इसका विस्तार संपूर्ण बंगाल पर है।

Q.162 What is the minimum notice period required for retrenchment, under the Industrial Disputes Act, 1947?
औद्योगिक विवाद अधिनियम, 1947 के अंतर्गत छँटनी के लिए न्यूनतम आवश्यक सूचना अवधि क्या है?

(1) One month / एक महीना ✔
(2) 15 days / 15 दिन
(3) Two months / दो महीने
(4) 45 days / 45 दिन

Q.163 As per the Workmen's Compensation Act,1923, the employer shall incur liability in which of the following instances?

कर्मकार प्रतिकर अधिनियम, 1923 के अनुसार, निम्नलिखित में से किस स्थिति में नियोक्ता दायी होगा?

(1) If the injury sustained to a worker does not result in total or partial disablement for more than three days / यदि किसी कर्मकार को लगी चोट के परिणामस्वरूप तीन दिनों से अधिक के लिए पूर्ण या आंशिक निःशक्तता नहीं होती है

(2) If the worker was under intoxication from drugs or alcohol / यदि कर्मकार नशीले पदार्थों या शराब के नशे में था

(3) If a worker suffered personal injury by accidents arising out of and in the course of his employment / यदि किसी कर्मकार को उसके नियोजन से और उसके दौरान होने वाली दुर्घटनाओं से व्यक्तिगत क्षति हुई हो ✔

(4) If the injury was caused by the worker's willful disobedience of safety rules / यदि चोट कर्मकार द्वारा सुरक्षा नियमों की जानबूझकर अवज्ञा के कारण हुई हो

Q.164 According to Section 4 of the Employees Compensation Act, 1923, which of the following constitutes an amount of compensation in case of death of an employee due to an injury?

कर्मचारी प्रतिकर अधिनियम, 1923 की धारा 4 के अनुसार, चोट के कारण किसी कर्मचारी की मृत्यु होने की स्थिति में निम्नलिखित में से कौन-सी प्रतिकर की राशि होगी?

(1) Forty per cent of the deceased employee's monthly wages multiplied by the relevant factor, or ₹1,20,000, whichever is more / मृत कर्मचारी के मासिक वेतन का चालीस प्रतिशत गुणा सुसंगत गुणक, या ₹1,20,000, जो भी अधिक हो

(2) Twenty per cent of the deceased employee's monthly wages multiplied by the relevant factor, or ₹1,20,000, whichever is more / मृत कर्मचारी के मासिक वेतन का बीस प्रतिशत गुणा सुसंगत गुणक, या ₹1,20,000, जो भी अधिक हो

(3) Sixty per cent of the deceased employee's monthly wages multiplied by the relevant factor, or ₹1,20,000, whichever is more / मृत कर्मचारी के मासिक वेतन का साठ प्रतिशत गुणा सुसंगत गुणक, या ₹1,20,000, जो भी अधिक हो

(4) Fifty per cent of the deceased employee's monthly wages multiplied by the relevant factor, or ₹1,20,000, whichever is more / मृत कर्मचारी के मासिक वेतन का पचास प्रतिशत गुणा सुसंगत गुणक, या ₹1,20,000, जो भी अधिक हो ✔

Q.165 Which of the following constitutes as an advantage of collective bargaining?

निम्नलिखित में से कौन-सा सामूहिक सौदेबाजी का एक लाभ है?

(1) Higher consumer prices / उपभोक्ता कीमतों में वृद्धि

(2) Lower productivity growth / उत्पादकता में निम्न वृद्धि

(3) Fairer work rules and policies / अधिक न्यायसंगत कार्य नियम और नीतियाँ ✔

(4) Higher labour costs for employers / नियोक्ताओं के लिए उच्च श्रम लागत

Q.166 Who appoints the Commissioner under the Workmen's Compensation Act, 1923?

कर्मकार प्रतिकर अधिनियम, 1923 के अंतर्गत आयुक्त की नियुक्ति कौन करता है?

(1) Central Government / केंद्र सरकार

(2) Local Authority / स्थानीय प्राधिकरण

(3) State Government / राज्य सरकार ✔

(4) High Court / उच्च न्यायालय

Q.167 What is the penalty for obstructing an Inspector under the Contract Labour Act, 1970?

ठेका श्रम अधिनियम, 1970 के अंतर्गत किसी निरीक्षक के कार्य में बाधा डालने पर क्या दंड है?

(1) ₹2,000 fine or imprisonment up to six months / ₹2,000 जुर्माना या छह महीने तक का कारावास

(2) ₹5,000 fine / ₹5,000 जुर्माना

(3) **₹500 fine or imprisonment up to three months / ₹500 जुर्माना या तीन महीने तक का कारावास ✔**

(4) ₹10,000 fine or imprisonment up to one year / ₹10,000 जुर्माना या एक वर्ष तक का कारावास

Q.168 As per Section 5 of The Payment of Bonus Act,1965, the available surplus in respect of any accounting year shall be the ____ for that year after deducting therefrom the sums mentioned.

बोनस संदाय अधिनियम, 1965 की धारा 5 के अनुसार, किसी लेखा वर्ष के संबंध में उपलभ्य अधिशेष उस वर्ष का ____ होगा, जिसमें से उल्लिखित राशियाँ घटा दी गई हों।

(1) gross loss / सकल हानि

(2) **gross profit / सकल लाभ ✔**

(3) net profit / शुद्ध लाभ

(4) turnover / आवर्त (टर्नओवर)

Q.169 What is the name of the advisory body that is responsible for advising the Employee's State Insurance (ESI) Corporation on medical benefits under the Employees' State Insurance Act, 1948?

कर्मचारी राज्य बीमा अधिनियम, 1948 के अंतर्गत चिकित्सा हितलाभों के संबंध में कर्मचारी राज्य बीमा (ESI) निगम को सलाह देने के लिए उत्तरदायी सलाहकार निकाय का नाम क्या है?

(1) Medical Benefit Team / चिकित्सा हितलाभ दल

(2) Medical Advisory Team / चिकित्सा सलाहकार दल

(3) Medical Advisory Unit / चिकित्सा सलाहकार इकाई

(4) **Medical Benefit Council / चिकित्सा हितलाभ परिषद ✔**

Q.170 Any person aggrieved by an order of revocation of registration under the Buildings and Other Construction Workers (Regulation of Employment and Conditions of Service) Act, 1996, can prefer an appeal within:

भवन और अन्य सन्निर्माण कर्मकार (नियोजन का विनियमन और सेवा-शर्त) अधिनियम, 1996 के अंतर्गत पंजीकरण के प्रतिसंहरण के आदेश से व्यथित कोई भी व्यक्ति कितने समय के भीतर अपील कर सकता है?

(1) 90 days / 90 दिन

(2) 45 days / 45 दिन

(3) **30 days / 30 दिन ✔**

(4) 60 days / 60 दिन

Q.171 According to Section 81 of The Factories Act ,1948, an adult worker who has been allowed leave, shall before his leave begins, for how many days be paid the wages due for the period of the leave allowed?

कारखाना अधिनियम, 1948 की धारा 81 के अनुसार, जिस वयस्क कर्मकार को छुट्टी दी गई है, उसे छुट्टी शुरू होने से पहले, कितने दिनों के लिए स्वीकृत छुट्टी की अवधि हेतु देय मजदूरी का भुगतान किया जाएगा?

(1) Five days / पाँच दिन

(2) Six days / छह दिन

(3) Seven days / सात दिन

(4) **Four days / चार दिन ✔**

Q.172 What is the role of the Advisory Board constituted under the Minimum Wages Act, 1948?

न्यूनतम मजदूरी अधिनियम, 1948 के अंतर्गत गठित सलाहकार बोर्ड की क्या भूमिका है?

(1) Inspecting workplaces / कार्यस्थलों का निरीक्षण करना

(2) Increasing the minimum wages in certain cases / कुछ मामलों में न्यूनतम मजदूरी में वृद्धि करना

(3) Advising on the revision of minimum wages / न्यूनतम मजदूरी के पुनरीक्षण पर सलाह देना ✔

(4) Enforcing the payment of minimum wages / न्यूनतम मजदूरी के भुगतान को लागू करना

Q.173 Under the Payment of Wages Act, 1936, what is the ordinary stipulated time frame for disposing of a claim after its registration by the authority?

मजदूरी संदाय अधिनियम, 1936 के अंतर्गत, प्राधिकरण द्वारा किसी दावे के पंजीकरण के बाद उसके निपटान के लिए सामान्य निर्धारित समय-सीमा क्या है?

(1) Six months / छह महीने

(2) Three months / तीन महीने ✔

(3) One month / एक महीना

(4) Two months / दो महीने

Q.174 Who is eligible for membership in the Family Pension Fund?

कुटुंब पेंशन निधि की सदस्यता के लिए कौन पात्र है?

(1) Employees earning below ₹15,000 per month / ₹15,000 प्रति माह से कम आय वाले कर्मचारी

(2) All employees / सभी कर्मचारी

(3) Employees contributing to EPF / EPF में अंशदान करने वाले कर्मचारी ✔

(4) Employees with 10 years of service / 10 वर्ष की सेवा वाले कर्मचारी

Q.175 What is the minimum number of workmen required to be employed so that the provisions of the Contract Labour Regulation and Abolition Act,1970, becomes applicable?

ठेका श्रम (विनियमन और उत्सादन) अधिनियम, 1970 के प्रावधान लागू होने के लिए न्यूनतम कितने कर्मकारों का नियोजित होना आवश्यक है?

(1) Minimum 20 / न्यूनतम 20 ✔

(2) Minimum 10 / न्यूनतम 10

(3) Minimum 30 / न्यूनतम 30

(4) Minimum 40 / न्यूनतम 40

Q.176 Which authority under the Industrial Disputes Act, 1947, is responsible for mediating disputes?

औद्योगिक विवाद अधिनियम, 1947 के अंतर्गत कौन-सा प्राधिकारी विवादों में मध्यस्थता के लिए उत्तरदायी है?

(1) Arbitration Panel / मध्यस्थता पैनल

(2) National Tribunal / राष्ट्रीय अधिकरण

(3) Labour Court / श्रम न्यायालय

(4) Conciliation Officer / सुलह अधिकारी ✔

Q.177 As per Section 5 of The Workmen's Compensation Act, 1923, a period of service shall, for the purposes of calculation of wages be deemed to be continuous if it has not been interrupted by a period of absence from work exceeding _____ days.

कर्मकार प्रतिकर अधिनियम, 1923 की धारा 5 के अनुसार, मजदूरी की गणना के प्रयोजनों के लिए सेवा की अवधि को निरंतर माना जाएगा यदि वह _____ दिनों से अधिक की कार्य से अनुपस्थिति की अवधि द्वारा बाधित न हुई हो।

(1) 14 ✔

(2) 15

(3) 12

(4) 10

Q.178 What is the maximum amount of deduction for payments relating to cooperative societies under the Payment of Wages Act,1936?

मजदूरी संदाय अधिनियम, 1936 के अंतर्गत सहकारी समितियों से संबंधित भुगतानों के लिए कटौती की अधिकतम राशि कितनी है?

(1) 35% of wages / मजदूरी का 35%

(2) 50% of wages / मजदूरी का 50%

(3) 60% of wages / मजदूरी का 60%

(4) 75% of wages / मजदूरी का 75% ✔

Q.179 Collective bargaining is a process by which a labour organisation, designated or selected by a majority of an employer's employees, specifically negotiates on behalf of employees with the employer over _____ and other terms and conditions of employment.

सामूहिक सौदेबाजी एक ऐसी प्रक्रिया है जिसके द्वारा किसी नियोक्ता के अधिकांश कर्मचारियों द्वारा नामित या चयनित एक श्रम संगठन, कर्मचारियों की ओर से नियोक्ता के साथ विशेष रूप से _____ और रोजगार के अन्य निबंधनों और शर्तों पर वार्ता करता है।

(1) fees / शुल्क

(2) rules of borrowing / उधार लेने के नियम

(3) funds / निधियाँ

(4) wages / मजदूरी ✔

Q.180 The Employees Provident Fund Scheme is applicable to establishments (other than a factory) employing:

कर्मचारी भविष्य निधि योजना (कारखाने के अतिरिक्त) उन प्रतिष्ठानों पर लागू होती है जिनमें नियोजित हैं:

(1) 25 or more employees / 25 या अधिक कर्मचारी

(2) 10 or more employees / 10 या अधिक कर्मचारी

(3) 20 or more employees / 20 या अधिक कर्मचारी ✔

(4) 15 or more employees / 15 या अधिक कर्मचारी

Q.181 What is the time frame within which eligible employees must exercise their option to join the Employees' Family Pension Scheme, 1971?

पात्र कर्मचारियों को कर्मचारी कुटुंब पेंशन योजना, 1971 में शामिल होने के लिए अपने विकल्प का प्रयोग किस समय-सीमा के भीतर करना होता है?

(1) Twelve months / बारह महीने

(2) Six months / छह महीने ✔

(3) There is no specific time frame / कोई विशिष्ट समय-सीमा नहीं है

(4) Three months / तीन महीने

Q.182 The Payment of Bonus Act of 1965 requires employers to calculate direct taxes payable using the tax rates applicable for which year?

बोनस संदाय अधिनियम, 1965 नियोक्ताओं से देय प्रत्यक्ष करों की गणना किस वर्ष के लिए लागू कर दरों का उपयोग करके करने की अपेक्षा करता है?

(1) Previous year / पिछला वर्ष

(2) **That year / वही वर्ष ✔**

(3) Last two years / पिछले दो वर्ष

(4) Next year / अगला वर्ष

Q.183 Protection of Gratuity is discussed under which Section of The Payment of Gratuity Act,1972?

उपदान संदाय अधिनियम, 1972 की किस धारा के अंतर्गत उपदान के संरक्षण की चर्चा की गई है?

(1) **Section 13 / धारा 13 ✔**

(2) Section 10 / धारा 10

(3) Section 11 / धारा 11

(4) Section 12 / धारा 12

Q.184 According to Section 19 of the Maternity Benefit Act 1961, 'An abstract of the provisions of this Act and the rules made thereunder in the language or languages of the locality shall be exhibited in a conspicuous place by the employer in every part of the establishment' in which _____ are employed.

प्रसूति प्रसुविधा अधिनियम 1961 की धारा 19 के अनुसार, 'इस अधिनियम और इसके अधीन बनाए गए नियमों के उपबंधों का सार, उस क्षेत्र की भाषा या भाषाओं में, नियोक्ता द्वारा प्रतिष्ठान के प्रत्येक उस भाग में किसी सहजदृश्य स्थान पर प्रदर्शित किया जाएगा' जिसमें _____ नियोजित हैं।

(1) children / बच्चे

(2) **women / महिलाएँ ✔**

(3) unskilled workers / अकुशल कर्मकार

(4) men / पुरुष

Q.185 Who appoints the Central Advisory Board under the Minimum Wages Act, 1948?

न्यूनतम मजदूरी अधिनियम, 1948 के अंतर्गत केंद्रीय सलाहकार बोर्ड की नियुक्ति कौन करता है?

(1) Member of Parliament / संसद सदस्य

(2) Central and State Government / केंद्र और राज्य सरकार

(3) State Government only / केवल राज्य सरकार

(4) **Central Government only / केवल केंद्र सरकार ✔**

Q.186 Section 5 of the Employment Exchanges (Compulsory Notification of Vacancies) Act, 1959, discusses which of the following?

रोजगार कार्यालय (रिक्तियों की अनिवार्य अधिसूचना) अधिनियम, 1959 की धारा 5 में निम्नलिखित में से किसकी चर्चा की गई है?

(1) Penalties / शास्तियाँ

(2) Power to make rules / नियम बनाने की शक्ति

(3) **Employers to furnish information and returns in a prescribed form / नियोक्ताओं द्वारा विहित प्रपत्र में जानकारी और विवरणियाँ प्रस्तुत करना ✔**

(4) Right of access to records or documents / अभिलेखों या दस्तावेज़ों तक पहुँच का अधिकार

Q.187 Under the Maternity Benefits Act, 1961, a creche facility is mandatory for establishments employing ____ or more employees.

प्रसूति प्रसुविधा अधिनियम, 1961 के अंतर्गत, ____ या अधिक कर्मचारियों को नियोजित करने वाले प्रतिष्ठानों के लिए शिशुगृह (क्रेच) सुविधा अनिवार्य है।

(1) 50 ✔

(2) 20

(3) 30

(4) 10

Q.188 Which Chapter of the Employees' State Insurance Act, 1948, provides the statutory provisions for 'Contributions'?

कर्मचारी राज्य बीमा अधिनियम, 1948 का कौन-सा अध्याय 'अंशदान' के लिए सांविधिक प्रावधान करता है?

(1) Chapter V / अध्याय V

(2) Chapter IV / अध्याय IV ✔

(3) Chapter III / अध्याय III

(4) Chapter II / अध्याय II

Q.189 Which of the following international institutions define 'collective bargaining' as an institutional procedure of joint determination of the rules to govern the terms and conditions of employment of the workers concerned and the labour management relations itself?

निम्नलिखित में से कौन-सी अंतर्राष्ट्रीय संस्था 'सामूहिक सौदेबाजी' को संबंधित कर्मकारों के रोजगार के निबंधनों और शर्तों तथा स्वयं श्रम-प्रबंधन संबंधों को शासित करने वाले नियमों के संयुक्त निर्धारण की एक संस्थागत प्रक्रिया के रूप में परिभाषित करती है?

(1) UDHR

(2) WHO

(3) ILO ✔

(4) CEDAW

Q.190 Which of the following is NOT an essential condition that must be taken into account before laying off a worker?

निम्नलिखित में से कौन-सी वह आवश्यक शर्त नहीं है जिस पर किसी कर्मकार की कामबंदी (ले-ऑफ) से पहले विचार किया जाना चाहिए?

(1) The workers should always be retrenched. / कर्मकारों की सदैव छँटनी की जानी चाहिए। ✔

(2) There has to be a failure of an employer. / नियोक्ता की विफलता होनी चाहिए।

(3) The names of the laid-off workers should necessarily feature on the muster rolls of the establishment. / कामबंदी किए गए कर्मकारों के नाम अनिवार्य रूप से प्रतिष्ठान की हाजिरी पंजियों (मस्टर रोल) में होने चाहिए।

(4) There has to be a refusal or inability of an employer. / नियोक्ता का इनकार या असमर्थता होनी चाहिए।

Q.191 As per the Contract Labour (Regulation and Abolition) Act, 1970, the Central Board shall consist of a Chairman to be appointed by the Central Government along with _____.

ठेका श्रम (विनियमन और उत्सादन) अधिनियम, 1970 के अनुसार, केंद्रीय बोर्ड में केंद्र सरकार द्वारा नियुक्त एक अध्यक्ष के साथ _____ होंगे।

(1) the Commissioner / आयुक्त

(2) the Chief Labour Commissioner / मुख्य श्रम आयुक्त ✔

(3) the Labour Officer / श्रम अधिकारी

(4) the Labour Commissioner / श्रम आयुक्त

Q.192 Which of the following sections specifically deals with Composition of Committees under the Minimum Wages Act,1948?

न्यूनतम मजदूरी अधिनियम, 1948 के अंतर्गत निम्नलिखित में से कौन-सी धारा विशेष रूप से समितियों की संरचना से संबंधित है?

(1) Section 9 / धारा 9 ✔

(2) Section 2 / धारा 2

(3) Section 7 / धारा 7

(4) Section 3 / धारा 3

Q.193 Who appoints the Expert Committees under the Buildings and Other Construction Workers (Regulation of Employment and Conditions of Service) Act, 1996?

भवन और अन्य सन्निर्माण कर्मकार (नियोजन का विनियमन और सेवा-शर्त) अधिनियम, 1996 के अंतर्गत विशेषज्ञ समितियों की नियुक्ति कौन करता है?

(1) Central Government / केंद्र सरकार

(2) State Government / राज्य सरकार

(3) Labour Commissioner / श्रम आयुक्त

(4) Appropriate Government / समुचित सरकार ✔

Q.194 According to Section 6 of the Employees' Family Pension Scheme, 1971, a member of the Family Pension Fund shall continue to be a member of the Family Pension Fund till he becomes entitled to withdraw the benefits to which he is entitled under this Scheme or dies during the period of reckonable service, _____.

कर्मचारी कुटुंब पेंशन योजना, 1971 की धारा 6 के अनुसार, कुटुंब पेंशन निधि का कोई सदस्य तब तक कुटुंब पेंशन निधि का सदस्य बना रहेगा जब तक कि वह इस योजना के अंतर्गत हकदार प्रसुविधाओं को निकालने का हकदार नहीं हो जाता या गणनीय सेवा की अवधि के दौरान उसकी मृत्यु नहीं हो जाती, _____।

(1) whichever is the earliest / जो भी सबसे पहले हो ✔

(2) or before 45 years of age / या 45 वर्ष की आयु से पहले

(3) whichever is later / जो भी बाद में हो

(4) or before 50 years of age / या 50 वर्ष की आयु से पहले

Q.195 What is the minimum age required for employment in any factory or a mine, or to get engaged in any other hazardous activity as per the Constitution of India?

भारत के संविधान के अनुसार किसी कारखाने या खान में रोजगार के लिए या किसी अन्य परिसंकटमय कार्य में लगाए जाने के लिए न्यूनतम आयु कितनी आवश्यक है?

(1) 13 years / 13 वर्ष

(2) 12 years / 12 वर्ष

(3) 15 years / 15 वर्ष

(4) 14 years / 14 वर्ष ✔

Q.196 What is the legal status of a trade union upon registration under the Trade Union Act, 1926?

व्यापार संघ अधिनियम, 1926 के अंतर्गत पंजीकरण होने पर किसी व्यापार संघ की विधिक स्थिति क्या होती है?

(1) It is recognised as a political body. / उसे एक राजनीतिक निकाय के रूप में मान्यता मिलती है।

(2) It becomes a partnership firm. / वह एक साझेदारी फर्म बन जाता है।

(3) It gains immunity from all laws. / उसे सभी कानूनों से उन्मुक्ति मिल जाती है।

(4) It becomes a corporate body. / वह एक निगमित निकाय बन जाता है। ✔

Q.197 As per the Maternity Benefit Act, 1961, what is the maximum period for which any woman shall be entitled to get maternity benefit?

प्रसूति प्रसुविधा अधिनियम, 1961 के अनुसार, कोई महिला अधिकतम कितनी अवधि के लिए प्रसूति प्रसुविधा प्राप्त करने की हकदार होगी?

(1) 30 weeks / 30 सप्ताह

(2) 26 weeks / 26 सप्ताह ✔

(3) 10 weeks / 10 सप्ताह

(4) 12 weeks / 12 सप्ताह

Q.198 What is the maximum number of hours a motor transport worker can work in a day, under the Motor Transport Workers' Act, 1961?

मोटर परिवहन कर्मकार अधिनियम, 1961 के अंतर्गत एक मोटर परिवहन कर्मकार एक दिन में अधिकतम कितने घंटे कार्य कर सकता है?

(1) 12 hours / 12 घंटे

(2) 10 hours / 10 घंटे

(3) 8 hours / 8 घंटे ✔

(4) 9 hours / 9 घंटे

Q.199 Identify the type of vacancy in which the Employment Exchanges (Compulsory Notification of Vacancies) Act, 1959, applies.

उस प्रकार की रिक्ति की पहचान करें जिस पर रोजगार कार्यालय (रिक्तियों की अनिवार्य अधिसूचना) अधिनियम, 1959 लागू होता है।

(1) In any employment in domestic service / घरेलू सेवा में किसी भी नियोजन में

(2) In any employment connected with the staff of Parliament / संसद के कर्मचारी-वृंद से संबंधित किसी भी नियोजन में

(3) In any employment to do skilled office work / कुशल कार्यालयी कार्य करने वाले किसी भी नियोजन में ✔

(4) In any employment, the total duration of which, is less than three months / किसी भी ऐसे नियोजन में, जिसकी कुल अवधि तीन महीने से कम हो

Q.200 Which provision of the Maternity Benefit Act ,1961, deals with 'Notice of Claim for Maternity Benefit'?

प्रसूति प्रसुविधा अधिनियम, 1961 का कौन-सा प्रावधान 'प्रसूति प्रसुविधा के लिए दावे की सूचना' से संबंधित है?

(1) Section 5 / धारा 5

(2) Section 6 / धारा 6 ✔

(3) Section 4 / धारा 4

(4) Section 7 / धारा 7

Answer Key / उत्तर कुंजी

1 4	**2** 4	**3** 4	**4** 1	**5** 4	**6** 1	**7** 1	**8** 3	**9** 1	**10** 2	**11** 2	**12** 1	**13** 3	**14** 3	**15** 2
16 1	**17** 3	**18** 3	**19** 3	**20** 2	**21** 1	**22** 3	**23** 4	**24** 2	**25** 2	**26** 3	**27** 1	**28** 2	**29** 2	**30** 2
31 4	**32** 4	**33** 3	**34** 3	**35** 1	**36** 1	**37** 4	**38** 2	**39** 3	**40** 3	**41** 2	**42** 2	**43** 2	**44** 3	**45** 4
46 2	**47** 3	**48** 4	**49** 4	**50** 4	**51** 2	**52** 4	**53** 3	**54** 3	**55** 1	**56** 1	**57** 4	**58** 2	**59** 2	**60** 4
61 1	**62** 2	**63** 1	**64** 2	**65** 2	**66** 3	**67** 3	**68** 1	**69** 4	**70** 4	**71** 2	**72** 1	**73** 1	**74** 1	**75** 2
76 3	**77** 3	**78** 3	**79** 2	**80** 3	**81** 2	**82** 1	**83** 1	**84** 3	**85** 4	**86** 2	**87** 4	**88** 1	**89** 4	**90** 1

91 4	**92** 4	**93** 4	**94** 4	**95** 2	**96** 4	**97** 1	**98** 4	**99** 4	**100** 2	**101** 2	**102** 4	**103** 2	**104** 2	**105** 3
106 1	**107** 2	**108** 3	**109** 3	**110** 2	**111** 1	**112** 3	**113** 1	**114** 4	**115** 2	**116** 3	**117** 4	**118** 4	**119** 4	**120** 3
121 2	**122** 3	**123** 4	**124** 3	**125** 2	**126** 1	**127** 4	**128** 2	**129** 1	**130** 4	**131** 3	**132** 2	**133** 2	**134** 3	**135** 2
136 4	**137** 3	**138** 3	**139** 2	**140** 1	**141** 3	**142** 3	**143** 3	**144** 3	**145** 1	**146** 3	**147** 3	**148** 2	**149** 4	**150** 3
151 2	**152** 4	**153** 2	**154** 4	**155** 3	**156** 1	**157** 4	**158** 2	**159** 4	**160** 2	**161** 2	**162** 1	**163** 3	**164** 4	**165** 3
166 3	**167** 3	**168** 2	**169** 4	**170** 3	**171** 4	**172** 3	**173** 2	**174** 3	**175** 1	**176** 4	**177** 1	**178** 4	**179** 4	**180** 3
181 2	**182** 2	**183** 1	**184** 2	**185** 4	**186** 3	**187** 1	**188** 2	**189** 3	**190** 1	**191** 2	**192** 1	**193** 4	**194** 1	**195** 4
196 4	**197** 2	**198** 3	**199** 3	**200** 2										

Quick Sarkari

GOVT. OF NCT OF DELHI
Delhi Subordinate Services Selection Board
FC-18, Institutional Area, Karkardooma, Delhi – 110092.
www.dsssb.delhigovt.nic.in

Test Date	28/06/2025
Test Time	1:00 PM - 3:00 PM
Subject	Labour Officer

Section : **General intelligence and Reasoning Ability**

Q.1 **9 is related to 30 following a certain logic. Following the same logic, 4 is related to 15. To which of the following is 6 related, following the same logic?**

(NOTE: Operations should be performed on the whole numbers, without breaking down the numbers into their constituent digits. E.g. 13 – Operations on 13 such as adding/subtracting/multiplying to 13 can be performed. Breaking down 13 into 1 and 3 and then performing mathematical operations on 1 and 3 is not allowed.)

Ans
✗ 1. 19
✗ 2. 24
✗ 3. 22
✓ 4. 21

Question ID : **441009362812**
Option 1 ID : **4410091417506**
Option 2 ID : **4410091417504**
Option 3 ID : **4410091417503**
Option 4 ID : **4410091417505**

QuickSarkari.com | WhatsApp Channel | Telegram: t.me/quick_sarkari

Q.2 **Select the figure from among the given options that can replace the question mark (?) in the following series.**

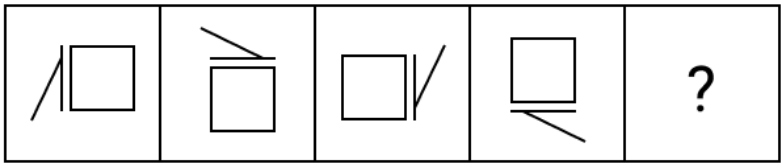

Ans

✗ 1.

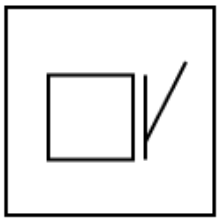

✗ 2.



✗ 3.

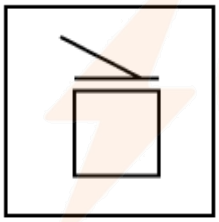

✓ 4.



Question ID : **441009368690**
Option 1 ID : **4410091440735**
Option 2 ID : **4410091440733**
Option 3 ID : **4410091440734**
Option 4 ID : **4410091440736**

QuickSarkari.com | WhatsApp Channel | Telegram: t.me/quick_sarkari

Q.3 What should come in place of the question mark (?) in the given series?

414 427 453 492 544 ?

Ans
✗ 1. 607
✗ 2. 603
✗ 3. 601
✓ 4. 609

Question ID : **441009362822**
Option 1 ID : **4410091417545**
Option 2 ID : **4410091417544**
Option 3 ID : **4410091417543**
Option 4 ID : **4410091417546**

Q.4 If 'A' stands for '÷', 'B' stands for '×', 'C' stands for '+' and 'D' stands for '−', then what will come in place of the question mark (?) in the following equation?

8 B 4 D 18 A 3 C 9 = ? D 4

Ans
✓ 1. 39
✗ 2. 37
✗ 3. 35
✗ 4. 40

Question ID : **441009362752**
Option 1 ID : **4410091417265**
Option 2 ID : **4410091417264**
Option 3 ID : **4410091417263**
Option 4 ID : **4410091417266**

Q.5 In a certain code language,
'A + B' means 'A is the sister of B',
'A − B' means 'A is the mother of B',
'A × B' means 'A is the wife of B' and
'A ÷ B' means 'A is the husband of B'.

How is E related to I if 'E ÷ F − G + H × I'?

Ans
✗ 1. Sister's husband
✗ 2. Mother's father
✗ 3. Father's brother
✓ 4. Wife's father

Question ID : **441009363193**
Option 1 ID : **4410091419030**
Option 2 ID : **4410091419028**
Option 3 ID : **4410091419027**
Option 4 ID : **4410091419029**

Q.6 N, O, P, Q, R, S, and X are sitting around a circular table, facing the centre of the table. Only one person sits between R and O, when counted from the left of O. S sits third to the right of P. X sits third to the left of Q. S sits to the immediate right of X. N is not an immediate neighbour of X. How many people sit between N and O, when counted from the right of N?

Ans
✔ 1. Three
✘ 2. Two
✘ 3. One
✘ 4. Four

Question ID : **441009363105**
Option 1 ID : **4410091418676**
Option 2 ID : **4410091418677**
Option 3 ID : **4410091418678**
Option 4 ID : **4410091418675**

Q.7 Anand starts from Point A and drives 14 km towards the west. He then takes a right turn, drives 17 km, then turns right and drives 19 km. He then takes a right turn and drives 18 km. He takes a final right turn, drives 5 km and stops at Point P. How far (shortest distance) and towards which direction should he drive in order to reach Point A again? (All turns are 90-degree turns only unless specified.)

Ans
✔ 1. 1 km to the north
✘ 2. 3 km to the north
✘ 3. 2 km to the north
✘ 4. 4 km to the north

Question ID : **441009363114**
Option 1 ID : **4410091418711**
Option 2 ID : **4410091418713**
Option 3 ID : **4410091418712**
Option 4 ID : **4410091418714**

Q.8 Select the set in which the numbers are related in the same way as are the numbers of the following sets.

(NOTE: Operations should be performed on the whole numbers, without breaking down the numbers into their constituent digits. E.g. 13 – Operations on 13 such as adding/subtracting/multiplying to 13 can be performed. Breaking down 13 into 1 and 3 and then performing mathematical operations on 1 and 3 is not allowed.)

(46, 71, 5)
(1, 170, 13)

Ans
✘ 1. (9, 335, 18)
✘ 2. (27, 654, 25)
✔ 3. (26, 62, 6)
✘ 4. (23, 125, 10)

Question ID : **441009362785**
Option 1 ID : **4410091417396**
Option 2 ID : **4410091417397**
Option 3 ID : **4410091417395**
Option 4 ID : **4410091417398**

Q.9 **Based on the English alphabetical order, three of the following four letter-cluster pairs are alike in a certain way and thus form a group. Which letter-cluster pair DOES NOT belong to that group?**
(Note: The odd one out is not based on the number of consonants/vowels or their position in the letter-cluster.)

Ans
- ✔ 1. DH-KE
- ✘ 2. GK-NI
- ✘ 3. IM-PK
- ✘ 4. LP-SN

Question ID : **441009363021**
Option 1 ID : **4410091418339**
Option 2 ID : **4410091418340**
Option 3 ID : **4410091418341**
Option 4 ID : **4410091418342**

Q.10 **Which of the following letter clusters will replace the question mark (?) in the given series to make it logically complete?**

RQU VUY ZYC DCG ?

Ans
- ✘ 1. HFJ
- ✔ 2. HGK
- ✘ 3. HHJ
- ✘ 4. HIK

Question ID : **441009363138**
Option 1 ID : **4410091418809**
Option 2 ID : **4410091418807**
Option 3 ID : **4410091418808**
Option 4 ID : **4410091418810**

Q.11 **If 'A' stands for '÷', 'B' stands for '×', 'C' stands for '+' and 'D' stands for '−', what will come in place of question mark (?) in the following equation?**

12 B 10 A 3 D 26 C 48 = ?

Ans
- ✘ 1. 60
- ✔ 2. 62
- ✘ 3. 63
- ✘ 4. 64

Question ID : **441009362782**
Option 1 ID : **4410091417385**
Option 2 ID : **4410091417383**
Option 3 ID : **4410091417386**
Option 4 ID : **4410091417384**

Q.12 This question is based on the given words.

ARE HAD MAY WON

If in each of the words, each letter is changed to the immediate next letter in the English alphabetical order, how many words thus formed will have no vowel?

Ans
✔ 1. Two
✘ 2. One
✘ 3. None
✘ 4. Three

Question ID : **441009363014**
Option 1 ID : **4410091418313**
Option 2 ID : **4410091418312**
Option 3 ID : **4410091418311**
Option 4 ID : **4410091418314**

Q.13 In a certain code language, 'KNEW' is coded as '7694' and 'NECK' is coded as '3947'. What is the code for 'C' in the given code language?

Ans
✘ 1. 7
✘ 2. 9
✔ 3. 3
✘ 4. 4

Question ID : **441009363028**
Option 1 ID : **4410091418369**
Option 2 ID : **4410091418370**
Option 3 ID : **4410091418367**
Option 4 ID : **4410091418368**

Q.14 Select the pair that follows the same pattern as that followed by the two pairs given below. Both pairs follow the same pattern.

BHP : HNV
IMQ : OSW

Ans
✘ 1. HRT : LVX
✘ 2. BFO : DHQ
✔ 3. JLT : PRZ
✘ 4. AFJ : DJM

Question ID : **441009363117**
Option 1 ID : **4410091418723**
Option 2 ID : **4410091418725**
Option 3 ID : **4410091418724**
Option 4 ID : **4410091418726**

Q.15 Based on the English alphabetical order, three of the following four letter-clusters are alike in a certain way and thus form a group. Which letter-cluster DOES NOT belong to that group?
(Note: The odd one out is not based on the number of consonants/vowels or their position in the letter-cluster.)

Ans
✗ 1. DBZ
✓ 2. KJG
✗ 3. HFD
✗ 4. AYW

Question ID : **441009362862**
Option 1 ID : **4410091417706**
Option 2 ID : **4410091417703**
Option 3 ID : **4410091417705**
Option 4 ID : **4410091417704**

Q.16 Each of P, Q, R, S, T, U, and V has exam on a different day of a week starting from Monday and ending on Sunday of the same week.
T has exam on Saturday. Only two people have exam between Q and T. U has exam immediately before R but not on Monday. P has exam immediately after S.
How many people have exam between V and S?

Ans
✓ 1. Five
✗ 2. Three
✗ 3. Two
✗ 4. One

Question ID : **441009363199**
Option 1 ID : **4410091419052**
Option 2 ID : **4410091419051**
Option 3 ID : **4410091419053**
Option 4 ID : **4410091419054**

Q.17 This question is based on the five, three-digit numbers given below.

(Left) 578 546 528 986 975 (Right)

(Example- 697 – First digit = 6, second digit = 9 and third digit = 7)
(NOTE: All operations to be done from left to right.)

What will be the resultant if the second digit of the second highest number is added to the third digit of the lowest number?

Ans
✗ 1. 11
✗ 2. 12
✓ 3. 15
✗ 4. 9

Question ID : **441009362910**
Option 1 ID : **4410091417896**
Option 2 ID : **4410091417897**
Option 3 ID : **4410091417898**
Option 4 ID : **4410091417895**

Q.18 **Read the given statements and conclusions carefully. Assuming that the information given in the statements is true, even if it appears to be at variance with commonly known facts, decide which of the given conclusion(s) logically follow(s) from the statements.**

Statements:
All salt are pepper.
All salt are oreganos.
Some oreganos are flakes.

Conclusions:
(I): Some flakes are salt.
(II): Some oreganos are pepper.

Ans
✗ 1. Neither conclusion (I) nor (II) follows.
✗ 2. Only conclusion (I) follows.
✓ 3. Only conclusion (II) follows.
✗ 4. Both conclusions (I) and (II) follow.

Question ID : **441009363128**
Option 1 ID : **4410091418769**
Option 2 ID : **4410091418767**
Option 3 ID : **4410091418768**
Option 4 ID : **4410091418770**

Q.19 **In a row of people all facing the north, Jughal is 21st from the left end. Anshu is 27th from the left end. Anshu is exactly between Jughal and Radhe. If Radhe is 16th from the right end of the line, how many people are there in the row?**

Ans
✗ 1. 46
✗ 2. 47
✓ 3. 48
✗ 4. 49

Question ID : **441009363025**
Option 1 ID : **4410091418355**
Option 2 ID : **4410091418356**
Option 3 ID : **4410091418357**
Option 4 ID : **4410091418358**

Q.20 **Which of the following letter-number clusters will replace the question mark (?) in the given series to make it logically complete?**

ERO36, QDA58, CPM80, OBY102, ?

Ans
✗ 1. BNK124
✓ 2. ANK124
✗ 3. ANK123
✗ 4. AJK124

Question ID : **441009363177**
Option 1 ID : **4410091418964**
Option 2 ID : **4410091418966**
Option 3 ID : **4410091418963**
Option 4 ID : **4410091418965**

Section : **General Awareness**

Q.1 **Chief Minister Nayab Singh Saini, won from which of the following constituencies of Haryana in the Legislative Assembly Election, 2024?**

Ans
✔ 1. Ladwa
✘ 2. Israna
✘ 3. Faridabad
✘ 4. Badshahpur

Question ID : **441009378986**
Option 1 ID : **4410091481769**
Option 2 ID : **4410091481770**
Option 3 ID : **4410091481772**
Option 4 ID : **4410091481771**

Q.2 **Traditionally, the region located between the Satluj and Indus rivers is referred to as:**

Ans
✘ 1. Nepal Himalayas
✘ 2. Assam Himalayas
✔ 3. Punjab Himalayas
✘ 4. Kumaon Himalayas

Question ID : **441009377172**
Option 1 ID : **4410091474088**
Option 2 ID : **4410091474089**
Option 3 ID : **4410091474087**
Option 4 ID : **4410091474086**

Q.3 **A Writ of _____ is issued by a higher court (High Court or the Supreme Court) when a lower court has considered a case going beyond its jurisdiction.**

Ans
✘ 1. Mandamus
✘ 2. Habeas Corpus
✘ 3. Quo-Warranto
✔ 4. Prohibition

Question ID : **441009377342**
Option 1 ID : **4410091474767**
Option 2 ID : **4410091474766**
Option 3 ID : **4410091474769**
Option 4 ID : **4410091474768**

QuickSarkari.com | WhatsApp Channel | Telegram: t.me/quick_sarkari

Q.4 **The battle of Bannihatti was fought between Vijayanagar and Bijapur empires in ____.**

Ans
✗ 1. 1563
✓ 2. 1565
✗ 3. 1568
✗ 4. 1569

Question ID : **441009367512**
Option 1 ID : **4410091436004**
Option 2 ID : **4410091436002**
Option 3 ID : **4410091436005**
Option 4 ID : **4410091436003**

Q.5 **What is the term used to describe the proportion of the population living below the poverty line?**

Ans
✗ 1. Poverty gap
✓ 2. Headcount ratio
✗ 3. Gini coefficient
✗ 4. Human poverty index

Question ID : **441009367449**
Option 1 ID : **4410091435750**
Option 2 ID : **4410091435753**
Option 3 ID : **4410091435751**
Option 4 ID : **4410091435752**

Q.6 **What is the name of the largest imaging atmospheric telescope installed at Hanle, Ladakh in October 2024?**

Ans
✗ 1. Liquid Mirror Telescope
✗ 2. Thirty Meter Telescope
✓ 3. Major Atmospheric Cerenkov Experiment Telescope
✗ 4. Devasthal Optical Telescope

Question ID : **441009378988**
Option 1 ID : **4410091481778**
Option 2 ID : **4410091481779**
Option 3 ID : **4410091481780**
Option 4 ID : **4410091481777**

QuickSarkari.com | WhatsApp Channel | Telegram: t.me/quick_sarkari

Q.7 **Which of the following types of forest is characterised by trees that shed their leaves for about six to eight weeks during dry summer?**

Ans
- ✔ 1. Tropical deciduous forests
- ✘ 2. Tropical thorn forests
- ✘ 3. Mangrove forests
- ✘ 4. Montane forests

Question ID : **441009112533**
Option 1 ID : **441009447762**
Option 2 ID : **441009447759**
Option 3 ID : **441009447761**
Option 4 ID : **441009447760**

Q.8 **In which state did a school set up India's first AI-generated school teacher robot named 'IRIS' in March 2024?**

Ans
- ✘ 1. Karnataka
- ✔ 2. Kerala
- ✘ 3. Haryana
- ✘ 4. Tamil Nadu

Question ID : **441009378991**
Option 1 ID : **4410091481790**
Option 2 ID : **4410091481791**
Option 3 ID : **4410091481789**
Option 4 ID : **4410091481792**

Q.9 **Which of the following players won the bronze medal in the Men's 50 m rifle 3 positions at the Olympics 2024?**

Ans
- ✘ 1. Amit Panghal
- ✔ 2. Swapnil Kusale
- ✘ 3. Arjun Cheema
- ✘ 4. Anish Bhanwala

Question ID : **441009378995**
Option 1 ID : **4410091481806**
Option 2 ID : **4410091481805**
Option 3 ID : **4410091481808**
Option 4 ID : **4410091481807**

Q.10 What was the effect of the Swadeshi Movement on Indian industry?

Ans
✗ 1. It resulted in the closure of many Indian factories.
✓ 2. It led to the establishment of Swadeshi industries and promotion of Indian-made goods.
✗ 3. It had no impact on the Indian economy.
✗ 4. It created a monopoly for British industries.

Question ID : **441009367458**
Option 1 ID : **4410091435787**
Option 2 ID : **4410091435789**
Option 3 ID : **4410091435786**
Option 4 ID : **4410091435788**

Q.11 Which category of economic activity is related to obtaining natural resources directly from the environment?

Ans
✗ 1. Tertiary
✗ 2. Secondary
✗ 3. Quaternary
✓ 4. Primary

Question ID : **441009377171**
Option 1 ID : **4410091474083**
Option 2 ID : **4410091474082**
Option 3 ID : **4410091474085**
Option 4 ID : **4410091474084**

Q.12 The hard shell around a walnut is composed of ____.

Ans
✗ 1. vascular tissues
✗ 2. mesophyll tissues
✗ 3. parenchymatous cells
✓ 4. sclerenchymatous cells

Question ID : **441009367374**
Option 1 ID : **4410091435452**
Option 2 ID : **4410091435453**
Option 3 ID : **4410091435451**
Option 4 ID : **4410091435450**

Q.13 In Buddhist architecture, what does the hemispherical dome or vase symbolise?

Ans
✗ 1. Space
✗ 2. Fire
✓ 3. Water
✗ 4. Earth

Question ID : **441009377074**
Option 1 ID : **4410091473695**
Option 2 ID : **4410091473694**
Option 3 ID : **4410091473697**
Option 4 ID : **4410091473696**

Q.14 Who launched the National Pension System Vatsalya (NPS Vatsalya) scheme in September 2024?

Ans
- ✗ 1. Narendra Modi
- ✗ 2. Rajnath Singh
- ✓ 3. Nirmala Sitharaman
- ✗ 4. Amit Shah

Question ID : **441009378983**
Option 1 ID : **4410091481758**
Option 2 ID : **4410091481760**
Option 3 ID : **4410091481759**
Option 4 ID : **4410091481757**

Q.15 Which of the following is a dicot plant?

Ans
- ✓ 1. Gram
- ✗ 2. Rice
- ✗ 3. Maize
- ✗ 4. Wheat

Question ID : **441009367340**
Option 1 ID : **4410091435314**
Option 2 ID : **4410091435315**
Option 3 ID : **4410091435317**
Option 4 ID : **4410091435316**

Q.16 What is the minimum number of Supreme Court judges required to hear a case, involving a substantial question of law as to the Interpretation of the Constitution?

Ans
- ✓ 1. Five
- ✗ 2. Eleven
- ✗ 3. Three
- ✗ 4. Seven

Question ID : **441009377333**
Option 1 ID : **4410091474731**
Option 2 ID : **4410091474733**
Option 3 ID : **4410091474730**
Option 4 ID : **4410091474732**

Q.17 Which of the following tree species is found in the Ganga-Brahmaputra delta and provides durable hard timber?

Ans
- ✗ 1. Sandalwood
- ✗ 2. Teak
- ✗ 3. Neem
- ✓ 4. Sundari

Question ID : **441009112539**
Option 1 ID : **441009447786**
Option 2 ID : **441009447784**
Option 3 ID : **441009447783**
Option 4 ID : **441009447785**

Q.18 **Who was elected as the President of the International Court of Justice (ICJ) in February 2024?**

Ans
- ✗ 1. Xue Hanqin
- ✓ 2. Nawaf Salam
- ✗ 3. Peter Tomka
- ✗ 4. Julia Sebutinde

Question ID : **441009367538**
Option 1 ID : **4410091436117**
Option 2 ID : **4410091436114**
Option 3 ID : **4410091436116**
Option 4 ID : **4410091436115**

Q.19 **What is the primary theme of the book 'Rupa-Ikshana', published in 2002?**

Ans
- ✗ 1. Historical events of the 20th century
- ✗ 2. Political developments in India
- ✓ 3. Indian art and culture
- ✗ 4. Economic policies of India

Question ID : **441009377073**
Option 1 ID : **4410091473693**
Option 2 ID : **4410091473690**
Option 3 ID : **4410091473692**
Option 4 ID : **4410091473691**

Q.20 **Which of the following in NOT a feature of the Indian Constitution?**

Ans
- ✗ 1. Written Constitution
- ✗ 2. Federalism
- ✓ 3. Sovereignty of Parliament
- ✗ 4. Judicial Review

Question ID : **441009377343**
Option 1 ID : **4410091474772**
Option 2 ID : **4410091474773**
Option 3 ID : **4410091474770**
Option 4 ID : **4410091474771**

Section : **Arithmetical and Numerical Ability**

Q.1 Express $0.\overline{732}$ in the form of $\frac{p}{q}$, where q is non-zero and p and q are integers.

Ans

✗ 1. $\frac{29}{36}$

✓ 2. $\frac{145}{198}$

✗ 3. $\frac{23}{36}$

✗ 4. $\frac{45}{33}$

Question ID : **441009133978**
Option 1 ID : **441009532587**
Option 2 ID : **441009532586**
Option 3 ID : **441009532588**
Option 4 ID : **441009532585**

Q.2 The following two pie charts show the percentage quantity of fruits at two shops P and Q.

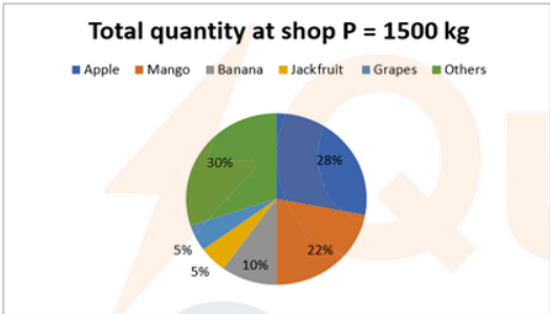

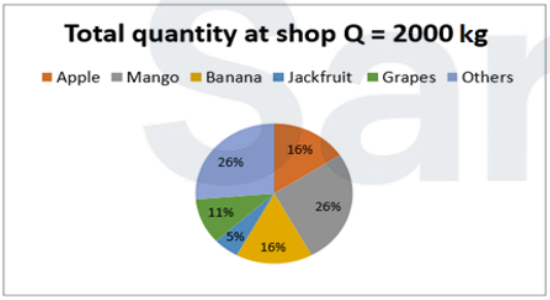

If the price of apple is ₹200/kg and mango is ₹100/kg for both shops P and Q, then what is the difference between the cost of these two fruits at shop P and that at shop Q?

Ans

✗ 1. ₹4,500

✓ 2. ₹1,000

✗ 3. ₹2,500

✗ 4. ₹3,000

Question ID : **441009364508**
Option 1 ID : **4410091424283**
Option 2 ID : **4410091424285**
Option 3 ID : **4410091424284**
Option 4 ID : **4410091424282**

Q.3 A pipe can fill a tank in 20 hours. Another pipe can empty the filled tank in 45 hours. If both the pipes are opened simultaneously, then the time (in hours) in which the tank will be filled is:

Ans
✗ 1. 37
✓ 2. 36
✗ 3. 38
✗ 4. 39

Question ID : **441009364454**
Option 1 ID : **4410091424067**
Option 2 ID : **4410091424066**
Option 3 ID : **4410091424068**
Option 4 ID : **4410091424069**

Q.4 Find the total surface area of a right circular cone with a slant height of 10 cm and a height of 8 cm. (Rounded off up to two decimal places)

$(\text{Take } \pi = \frac{22}{7})$

Ans
✗ 1. 312.62 cm^2
✗ 2. 293.43 cm^2
✓ 3. 301.71 cm^2
✗ 4. 324.94 cm^2

Question ID : **441009364573**
Option 1 ID : **4410091424544**
Option 2 ID : **4410091424542**
Option 3 ID : **4410091424543**
Option 4 ID : **4410091424545**

Q.5 A vendor bought lemons at 42 for ₹1. How many must he sell for ₹1 to gain 100%?

Ans
✗ 1. 23
✗ 2. 25
✗ 3. 22
✓ 4. 21

Question ID : **441009364476**
Option 1 ID : **4410091424156**
Option 2 ID : **4410091424157**
Option 3 ID : **4410091424155**
Option 4 ID : **4410091424154**

Q.6 What is the smallest natural number that should be added to 7197 such that a remainder of 3 is left when the resulting number is divided by each of the numbers 15, 11, 66, and 75?

Ans
✗ 1. 1047
✓ 2. 1056
✗ 3. 1074
✗ 4. 1041

Question ID : **441009364306**
Option 1 ID : **4410091423475**
Option 2 ID : **4410091423474**
Option 3 ID : **4410091423476**
Option 4 ID : **4410091423477**

Q.7 What is the average of all the natural numbers from 1 to 64?

Ans
✗ 1. 33.5
✗ 2. 33
✓ 3. 32.5
✗ 4. 32

Question ID : **441009364466**
Option 1 ID : **4410091424115**
Option 2 ID : **4410091424117**
Option 3 ID : **4410091424114**
Option 4 ID : **4410091424116**

Q.8 If a 6946 m long train crosses a pole in 151 seconds, then find the time (in seconds) taken by the train to cross a 322 m long platform.

Ans
✗ 1. 163
✗ 2. 156
✗ 3. 150
✓ 4. 158

Question ID : **441009364335**
Option 1 ID : **4410091423593**
Option 2 ID : **4410091423591**
Option 3 ID : **4410091423592**
Option 4 ID : **4410091423590**

Q.9 **Find the simple interest (to the closest integral ₹) on ₹4,000 at 5.25% per annum rate of interest for the period from 18 February 2024 to 19 April 2024.**

Ans
✗ 1. 36
✗ 2. 34
✗ 3. 33
✓ 4. 35

Question ID : **441009364446**
Option 1 ID : **4410091424036**
Option 2 ID : **4410091424035**
Option 3 ID : **4410091424037**
Option 4 ID : **4410091424034**

Q.10 **The volume (in cm^3) of a wire of diameter 12 cm and length 21 m is:**

Take $\pi = \frac{22}{7}$

Ans
✗ 1. 2,38,300
✗ 2. 2,38,000
✗ 3. 2,36,900
✓ 4. 2,37,600

Question ID : **441009364578**
Option 1 ID : **4410091424565**
Option 2 ID : **4410091424564**
Option 3 ID : **4410091424563**
Option 4 ID : **4410091424562**

Q.11 **A man sold an article for ₹132 by first giving a d% discount on its marked price, and then another discount having the same nominal value (in ₹). If the marked price of the article is ₹880, what is the value of d?**

Ans
✗ 1. 37.3
✓ 2. 42.5
✗ 3. 39.5
✗ 4. 46

Question ID : **441009364384**
Option 1 ID : **4410091423787**
Option 2 ID : **4410091423786**
Option 3 ID : **4410091423788**
Option 4 ID : **4410091423789**

Q.12 **Simplify the following expression.**

$\sqrt[6]{64} + \sqrt[4]{2401} + \sqrt[3]{17576} + \sqrt{1600}$

Ans

✗ 1. 158

✗ 2. 85

✗ 3. 9

✓ 4. 75

Question ID : **441009364423**
Option 1 ID : **4410091423945**
Option 2 ID : **4410091423943**
Option 3 ID : **4410091423944**
Option 4 ID : **4410091423942**

Q.13 **Nidhi invested a sum of ₹1,800 at 10% per annum compound interest, compounded annually. If she received an amount of ₹2,178 after n years, the value of n is:**

Ans

✗ 1. 2.5

✗ 2. 3

✓ 3. 2

✗ 4. 1.5

Question ID : **441009364365**
Option 1 ID : **4410091423712**
Option 2 ID : **4410091423713**
Option 3 ID : **4410091423710**
Option 4 ID : **4410091423711**

Q.14 **Two pipes can fill a tank in 53 hours and 4 hours, respectively. The time (in hours) required to fill the tank when both the pipes are opened simultaneously is:**

Ans

✗ 1. $\frac{213}{58}$

✗ 2. $\frac{215}{54}$

✓ 3. $\frac{212}{57}$

✗ 4. $\frac{214}{59}$

Question ID : **441009364319**
Option 1 ID : **4410091423527**
Option 2 ID : **4410091423528**
Option 3 ID : **4410091423526**
Option 4 ID : **4410091423529**

QuickSarkari.com | WhatsApp Channel | Telegram: t.me/quick_sarkari

Q.15 In a college election fought between two candidates, one candidate got 63% of the total valid votes. If 12% of the votes were invalid and the total votes were 17,500, what is the number of valid votes that the other candidate got?

Ans
✔ 1. 5698
✘ 2. 5896
✘ 3. 5968
✘ 4. 5588

Question ID : **441009364413**
Option 1 ID : **4410091423904**
Option 2 ID : **4410091423903**
Option 3 ID : **4410091423902**
Option 4 ID : **4410091423905**

Q.16 Kirti and Payal invest in a business in the ratio 3 : 7. If the total profit is ₹3,430, then what is the difference between the profits (in ₹) of Kirti and Payal?

Ans
✔ 1. 1,372
✘ 2. 1,422
✘ 3. 1,472
✘ 4. 1,272

Question ID : **441009364292**
Option 1 ID : **4410091423418**
Option 2 ID : **4410091423420**
Option 3 ID : **4410091423419**
Option 4 ID : **4410091423421**

Q.17 The area of a square plot is 15,376 m^2. The length of each side of the plot (in m) is:

Ans
✘ 1. 142
✘ 2. 122
✘ 3. 134
✔ 4. 124

Question ID : **441009364409**
Option 1 ID : **4410091423887**
Option 2 ID : **4410091423889**
Option 3 ID : **4410091423888**
Option 4 ID : **4410091423886**

QuickSarkari.com | WhatsApp Channel | Telegram: t.me/quick_sarkari

Q.18 A number when increased by 50% gives 3360. The number is:

Ans
✗ 1. 1120
✓ 2. 2240
✗ 3. 6720
✗ 4. 4480

Question ID : **441009364434**
Option 1 ID : **4410091423988**
Option 2 ID : **4410091423986**
Option 3 ID : **4410091423989**
Option 4 ID : **4410091423987**

Q.19 Which of the following is NOT a pair of coprime numbers?

Ans
✗ 1. (2, 15)
✓ 2. (150, 295)
✗ 3. (13, 10)
✗ 4. (6, 11)

Question ID : **441009363951**
Option 1 ID : **4410091422054**
Option 2 ID : **4410091422056**
Option 3 ID : **4410091422055**
Option 4 ID : **4410091422057**

Q.20 Evaluate the following expression.

$33 \div 9 \times 6 - 2 \times 3$

Ans
✗ 1. 18
✗ 2. 15
✗ 3. 19
✓ 4. 16

Question ID : **441009364415**
Option 1 ID : **4410091423912**
Option 2 ID : **4410091423913**
Option 3 ID : **4410091423911**
Option 4 ID : **4410091423910**

Section : **Test of English Language and Comprehension**

QuickSarkari.com | WhatsApp Channel | Telegram: t.me/quick_sarkari

Q.1 **Select the most appropriate ANTONYM of the underlined word in the given sentence.**
The committee <u>ratified</u> the proposal after much deliberation.

Ans
✔ 1. Rejected
✘ 2. Presented
✘ 3. Accepted
✘ 4. Criticised

Question ID : **44100974810**
Option 1 ID : **441009297521**
Option 2 ID : **441009297519**
Option 3 ID : **441009297520**
Option 4 ID : **441009297518**

Q.2 **Select the most appropriate set of articles to fill in the blanks.**

_____ Nile is in Africa, whereas _____ Amazon flows through South America.

Ans
✘ 1. The ; a
✔ 2. The ; the
✘ 3. The ; an
✘ 4. A ; the

Question ID : **44100973366**
Option 1 ID : **441009291768**
Option 2 ID : **441009291769**
Option 3 ID : **441009291767**
Option 4 ID : **441009291770**

Q.3 **Select the most appropriate article to fill in the blank. If no article is needed, select 'No article required'.**
She saw _____ elephant at the zoo yesterday.

Ans
✔ 1. an
✘ 2. a
✘ 3. the
✘ 4. No article required

Question ID : **44100969511**
Option 1 ID : **441009276689**
Option 2 ID : **441009276688**
Option 3 ID : **441009276690**
Option 4 ID : **441009276691**

QuickSarkari.com | WhatsApp Channel | Telegram: t.me/quick_sarkari

Q.4 **Parts of a sentence are given below. While the first and last parts (1 and 6) are in the correct place, the remaining parts (labelled P, Q, R and S) are jumbled up. Arrange the parts in the correct order to form a meaningful and coherent sentence.**

1 : Moisture is continuously lost
P : and as a result of the stresses
Q : as part of a natural process
R : and strains of daily life
S : leading to a dull, dry and
6 : lifeless complexion.

Ans

✗ 1. R S Q P

✓ 2. Q P R S

✗ 3. S Q P R

✗ 4. P R S Q

Question ID : **44100968976**
Option 1 ID : **441009274539**
Option 2 ID : **441009274540**
Option 3 ID : **441009274537**
Option 4 ID : **441009274538**

Q.5 **One of the four underlined words in the given paragraph is incorrectly spelt. Identify the INCORRECTLY spelt word.**

The sudden storm did nothing but exacerbate the travellers' already difficult journey, making the roads slippery and dangerous. They had to navigate carefully, searching for shelter wherever possible. The flickering lantern light seemed to accentuate their exhaustion, casting deep shadows on their weary faces. Trapped in what felt like an obliette of endless rain and darkness, they could only hope for the storm to pass.

Ans

✗ 1. Exacerbate

✓ 2. Obliette

✗ 3. Navigate

✗ 4. Accentuate

Question ID : **44100976480**
Option 1 ID : **441009304138**
Option 2 ID : **441009304139**
Option 3 ID : **441009304137**
Option 4 ID : **441009304140**

QuickSarkari

Q.6 **Select the correct spelling of the underlined incorrectly spelt word in the given sentence.**
In the grand hall of the hotel, it was clear that the venue could comfortably accomodate up to 200 guests for the event. The organisers were excited to see such a large crowd, anticipating a night full of memorable moments.

Ans
✗ 1. Acommodate
✗ 2. Accomodatee
✓ 3. Accommodate
✗ 4. Accommadate

Question ID : **44100973623**
Option 1 ID : **441009292808**
Option 2 ID : **441009292807**
Option 3 ID : **441009292806**
Option 4 ID : **441009292809**

Q.7 **Select the most appropriate option to fill in the blank.**
I prepare my meals at home __ I love cooking.

Ans
✗ 1. due to
✗ 2. and
✓ 3. because
✗ 4. though

Question ID : **44100971875**
Option 1 ID : **441009285873**
Option 2 ID : **441009285874**
Option 3 ID : **441009285875**
Option 4 ID : **441009285876**

Q.8 **Select the most appropriate idiom that can substitute the underlined segment in the given sentence.**
Despite being warned several times, he continued to ignore the obvious signs, which eventually led to his downfall.

Ans
✓ 1. turn a blind eye
✗ 2. miss the boat
✗ 3. spill the beans
✗ 4. bite the bullet

Question ID : **44100972217**
Option 1 ID : **441009287225**
Option 2 ID : **441009287228**
Option 3 ID : **441009287227**
Option 4 ID : **441009287226**

Q.9 **Sentences of a paragraph are given below. While the first sentence (S1) is in the correct order, the sentences below it are jumbled up. Arrange the sentences in the correct order to form a meaningful and coherent paragraph.**
S1: The human brain is one of the most complex and fascinating organs in the body.
P: Understanding these processes can help develop better treatments for neurological disorders and improve cognitive health.
Q: Research has shown that engaging in mentally stimulating activities, such as puzzles and learning new skills, can enhance brain function.
R: This ability, known as neuroplasticity, plays a crucial role in learning, memory and recovery from injuries.
S: Scientists have discovered that the brain constantly adapts and forms new neural connections throughout life.

Ans
✗ 1. SQRP
✗ 2. RSPQ
✗ 3. RSQP
✓ 4. SRQP

Question ID : **44100969522**
Option 1 ID : **441009276735**
Option 2 ID : **441009276734**
Option 3 ID : **441009276732**
Option 4 ID : **441009276733**

Q.10 **Select the most appropriate proverb that can substitute the underlined segment in the given sentence.**
He keeps making promises about helping the community, but I told him that what you do is more important than what you say.

Ans
✗ 1. a rolling stone gathers no moss
✗ 2. every cloud has a silver lining
✗ 3. the pen is mightier than the sword
✓ 4. actions speak louder than words

Question ID : **44100972243**
Option 1 ID : **441009287331**
Option 2 ID : **441009287332**
Option 3 ID : **441009287330**
Option 4 ID : **441009287329**

Q.11 **Select the most appropriate option to fill in the blank.**

Please keep the plates ____ the shelf.

Ans
✗ 1. into
✓ 2. on
✗ 3. at
✗ 4. above

Question ID : **44100971805**
Option 1 ID : **441009285604**
Option 2 ID : **441009285602**
Option 3 ID : **441009285603**
Option 4 ID : **441009285601**

Q.12 Sentences of a paragraph are given below. While the first sentence (S1) is in the correct order, the sentences below it are jumbled up. Arrange the sentences in the correct order to form a meaningful and coherent paragraph.

S1. Savita was lonely in the house.
P. She was very good at that.
Q. She sat all day in a little room off the main drawing room.
R. She would sit on the rug and do needle work.
S. It was a little room with nothing in it but a few chairs and a rug.

Ans
✔ 1. Q S R P
✘ 2. R S P Q
✘ 3. P Q R S
✘ 4. S R P Q

Question ID : **44100969006**
Option 1 ID : **441009274658**
Option 2 ID : **441009274659**
Option 3 ID : **441009274657**
Option 4 ID : **441009274660**

Q.13 Select the option that can be used as a one-word substitute for the given group of words.

Insulting God and sacred things

Ans
✔ 1. Blasphemy
✘ 2. Anthology
✘ 3. Biography
✘ 4. Defame

Question ID : **44100969024**
Option 1 ID : **441009274728**
Option 2 ID : **441009274726**
Option 3 ID : **441009274725**
Option 4 ID : **441009274727**

Q.14 Select the most appropriate option to fill in the blank.

My dog _____ my cat the whole day.

Ans
✔ 1. shadows
✘ 2. swills
✘ 3. reposes
✘ 4. wriggles

Question ID : **44100971994**
Option 1 ID : **441009286328**
Option 2 ID : **441009286327**
Option 3 ID : **441009286330**
Option 4 ID : **441009286329**

QuickSarkari.com | WhatsApp Channel | Telegram: t.me/quick_sarkari

Q.15 **Select the most appropriate synonym of the given word.**

Stentorian

Ans

✗ 1. Stealthy

✓ 2. Loud

✗ 3. Violent

✗ 4. Misbegotten

Question ID : **44100974087**
Option 1 ID : **441009294513**
Option 2 ID : **441009294512**
Option 3 ID : **441009294510**
Option 4 ID : **441009294511**

Comprehension:

Read the given passage and answer the questions that follow.

On a quiet evening in a small coastal town, young Maya sat by the shore, watching the waves crash against the rocks. She had always been fascinated by the ocean, but tonight, a peculiar sight caught her attention. A group of fishermen stood in silence, gazing at their empty nets. The once-thriving fish population had dwindled, leaving them struggling to make a living. Their faces bore expressions of worry, as their livelihoods depended on the sea's generosity.

Maya had heard her grandfather speak about the days when the ocean was abundant with life. Overfishing, pollution and climate change, however, had taken a toll, and now the sea seemed like a shadow of its former self. Determined to make a difference, she began researching sustainable fishing practices. She learned about marine conservation and how small changes—such as regulated fishing, reducing plastic waste and protecting breeding grounds—could restore the ocean's health.

Weeks later, Maya spoke at a town meeting, urging people to adopt responsible fishing methods. Though met with scepticism at first, her passion and determination inspired change. Fishermen started working with environmentalists, and slowly, signs of marine life returning began to emerge. The ocean, like a patient healer, was ready to give back—if only humans treated it with respect and care.

SubQuestion No : 16

Q.16 **What is the ANTONYM of the word 'dwindled' as used in the passage?**

Ans

✗ 1. Reduced

✗ 2. Weakened

✓ 3. Increased

✗ 4. Disappeared

Question ID : **441009114743**
Option 1 ID : **441009456396**
Option 2 ID : **441009456397**
Option 3 ID : **441009456395**
Option 4 ID : **441009456394**

Comprehension:

Read the given passage and answer the questions that follow.

On a quiet evening in a small coastal town, young Maya sat by the shore, watching the waves crash against the rocks. She had always been fascinated by the ocean, but tonight, a peculiar sight caught her attention. A group of fishermen stood in silence, gazing at their empty nets. The once-thriving fish population had dwindled, leaving them struggling to make a living. Their faces bore expressions of worry, as their livelihoods depended on the sea's generosity.

Maya had heard her grandfather speak about the days when the ocean was abundant with life. Overfishing, pollution and climate change, however, had taken a toll, and now the sea seemed like a shadow of its former self. Determined to make a difference, she began researching sustainable fishing practices. She learned about marine conservation and how small changes—such as regulated fishing, reducing plastic waste and protecting breeding grounds—could restore the ocean's health.

Weeks later, Maya spoke at a town meeting, urging people to adopt responsible fishing methods. Though met with scepticism at first, her passion and determination inspired change. Fishermen started working with environmentalists, and slowly, signs of marine life returning began to emerge. The ocean, like a patient healer, was ready to give back—if only humans treated it with respect and care.

SubQuestion No : 17

Q.17 What inference can be drawn from the passage?

Ans

✗ 1. The ocean's decline is irreversible.

✗ 2. Fishermen refuse to change their methods.

✓ 3. Small efforts can lead to environmental recovery.

✗ 4. Only governments can solve environmental problems.

Question ID : **441009114744**
Option 1 ID : **441009456399**
Option 2 ID : **441009456400**
Option 3 ID : **441009456398**
Option 4 ID : **441009456401**

QuickSarkari.com | WhatsApp Channel | Telegram: t.me/quick_sarkari

Comprehension:

Read the given passage and answer the questions that follow.

On a quiet evening in a small coastal town, young Maya sat by the shore, watching the waves crash against the rocks. She had always been fascinated by the ocean, but tonight, a peculiar sight caught her attention. A group of fishermen stood in silence, gazing at their empty nets. The once-thriving fish population had dwindled, leaving them struggling to make a living. Their faces bore expressions of worry, as their livelihoods depended on the sea's generosity.

Maya had heard her grandfather speak about the days when the ocean was abundant with life. Overfishing, pollution and climate change, however, had taken a toll, and now the sea seemed like a shadow of its former self. Determined to make a difference, she began researching sustainable fishing practices. She learned about marine conservation and how small changes—such as regulated fishing, reducing plastic waste and protecting breeding grounds—could restore the ocean's health.

Weeks later, Maya spoke at a town meeting, urging people to adopt responsible fishing methods. Though met with scepticism at first, her passion and determination inspired change. Fishermen started working with environmentalists, and slowly, signs of marine life returning began to emerge. The ocean, like a patient healer, was ready to give back—if only humans treated it with respect and care.

SubQuestion No : 18

Q.18 What is the most suitable title for the passage?

Ans

✗ 1. The Fight for Marine Conservation

✗ 2. The Fishermen's Dilemma

✓ 3. Maya and the Lost Ocean

✗ 4. Lessons from the Deep

Question ID : **441009114740**
Option 1 ID : **441009456384**
Option 2 ID : **441009456382**
Option 3 ID : **441009456383**
Option 4 ID : **441009456385**

Comprehension:

Read the given passage and answer the questions that follow.

On a quiet evening in a small coastal town, young Maya sat by the shore, watching the waves crash against the rocks. She had always been fascinated by the ocean, but tonight, a peculiar sight caught her attention. A group of fishermen stood in silence, gazing at their empty nets. The once-thriving fish population had dwindled, leaving them struggling to make a living. Their faces bore expressions of worry, as their livelihoods depended on the sea's generosity.

Maya had heard her grandfather speak about the days when the ocean was abundant with life. Overfishing, pollution and climate change, however, had taken a toll, and now the sea seemed like a shadow of its former self. Determined to make a difference, she began researching sustainable fishing practices. She learned about marine conservation and how small changes—such as regulated fishing, reducing plastic waste and protecting breeding grounds—could restore the ocean's health.

Weeks later, Maya spoke at a town meeting, urging people to adopt responsible fishing methods. Though met with scepticism at first, her passion and determination inspired change. Fishermen started working with environmentalists, and slowly, signs of marine life returning began to emerge. The ocean, like a patient healer, was ready to give back—if only humans treated it with respect and care.

SubQuestion No : 19

Q.19 Which option best summarises the passage?

Ans

✗ 1. Overfishing and pollution are harming marine ecosystems, with no hope for recovery.

✓ 2. Fishermen struggle with dwindling fish populations, and Maya leads efforts to restore balance.

✗ 3. Maya, a young girl, watches the ocean and learns about marine life.

✗ 4. A town ignores Maya's ideas about conservation, leading to further decline in fishing.

Question ID : **441009114742**
Option 1 ID : **441009456392**
Option 2 ID : **441009456391**
Option 3 ID : **441009456390**
Option 4 ID : **441009456393**

QuickSarkari.com | WhatsApp Channel | Telegram: t.me/quick_sarkari

Comprehension:

Read the given passage and answer the questions that follow.

On a quiet evening in a small coastal town, young Maya sat by the shore, watching the waves crash against the rocks. She had always been fascinated by the ocean, but tonight, a peculiar sight caught her attention. A group of fishermen stood in silence, gazing at their empty nets. The once-thriving fish population had dwindled, leaving them struggling to make a living. Their faces bore expressions of worry, as their livelihoods depended on the sea's generosity.

Maya had heard her grandfather speak about the days when the ocean was abundant with life. Overfishing, pollution and climate change, however, had taken a toll, and now the sea seemed like a shadow of its former self. Determined to make a difference, she began researching sustainable fishing practices. She learned about marine conservation and how small changes—such as regulated fishing, reducing plastic waste and protecting breeding grounds—could restore the ocean's health.

Weeks later, Maya spoke at a town meeting, urging people to adopt responsible fishing methods. Though met with scepticism at first, her passion and determination inspired change. Fishermen started working with environmentalists, and slowly, signs of marine life returning began to emerge. The ocean, like a patient healer, was ready to give back—if only humans treated it with respect and care.

SubQuestion No : 20

Q.20 What is the tone of the passage?

Ans

✗ 1. Indifferent

✗ 2. Pessimistic

✓ 3. Hopeful

✗ 4. Sarcastic

Question ID : **441009114741**
Option 1 ID : **441009456389**
Option 2 ID : **441009456386**
Option 3 ID : **441009456387**
Option 4 ID : **441009456388**

Section : **Test of Hindi Language and Comprehension**

Q.1 उचित विशेषण से वाक्य पूर्ण करें-
इस जगह पर _____ लोग आते हैं।

Ans

✗ 1. खेलने

✓ 2. कई

✗ 3. जल्दी

✗ 4. कल

Question ID : **44100977280**
Option 1 ID : **441009307121**
Option 2 ID : **441009307118**
Option 3 ID : **441009307120**
Option 4 ID : **441009307119**

Q.2 'वर्तमान समय मे पत्रों का महत्त घठता जा रहा है ' वाक्य के किस भाग में त्रुटि है-

Ans
✔ 1. महत्त घठता
✘ 2. पत्रों का
✘ 3. जा रहा है
✘ 4. वर्तमान समय

Question ID : **44100983139**
Option 1 ID : **441009330320**
Option 2 ID : **441009330319**
Option 3 ID : **441009330321**
Option 4 ID : **441009330318**

Q.3 उचित कारक चिह्नों से वाक्य पूर्ण करें।
मैं____ उसे बार बार समझाया।

Ans
✔ 1. ने
✘ 2. कल
✘ 3. से
✘ 4. पर

Question ID : **44100979013**
Option 1 ID : **441009313962**
Option 2 ID : **441009313963**
Option 3 ID : **441009313964**
Option 4 ID : **441009313965**

Q.4 दिये गये वाक्य के किस भाग में त्रुटि है?

हमें प्रकृति की संरक्षण करना चाहिए।

Ans
✘ 1. हमें प्रकृति
✘ 2. संरक्षण
✔ 3. की
✘ 4. करना चाहिए।

Question ID : **44100972058**
Option 1 ID : **441009286583**
Option 2 ID : **441009286585**
Option 3 ID : **441009286584**
Option 4 ID : **441009286586**

QuickSarkari.com | WhatsApp Channel | Telegram: t.me/quick_sarkari

Q.5 निम्न लोकोक्ति का सही अर्थ अंकित कीजिए।
जैसी ओढ़े कामली वैसा ओढ़ा खेस-

Ans
✗ 1. जैसा समय आ पड़े उसी के अनुसार अपना रंग बदल लेना चाहिए
✗ 2. जैसा समय आ पड़े उसी के अनुसार अपनी भाषा बदल लेनी चाहिए
✗ 3. जैसा समय आ पड़े उसी के अनुसार अपना उल्लू सीधा कर लेना चाहिए
✓ 4. जैसा समय आ पड़े उसी के अनुसार अपना रहन-सहन बना लेना चाहिए

Question ID : **44100973005**
Option 1 ID : **441009290347**
Option 2 ID : **441009290345**
Option 3 ID : **441009290344**
Option 4 ID : **441009290346**

Q.6 उचित क्रिया शब्द से वाक्य पूर्ण करें-
बूँद-बूँद से तालाब _____ है।

Ans
✗ 1. भरेगी
✓ 2. भरता
✗ 3. भरती
✗ 4. भरी

Question ID : **44100978698**
Option 1 ID : **441009312801**
Option 2 ID : **441009312799**
Option 3 ID : **441009312800**
Option 4 ID : **441009312802**

Q.7 निम्नलिखित वाक्यों में से कौन-सा वाक्य क्रम सही है ?

Ans
✗ 1. कर रखा था पहले से निश्चय मैंने ऐसा करना ।
✗ 2. ऐसा करना मैंने निश्चय कर रखा था पहले से ।
✗ 3. निश्चय कर रखा था पहले से मैंने ऐसा करना ।
✓ 4. मैंने ऐसा करना पहले से निश्चय कर रखा था ।

Question ID : **44100985774**
Option 1 ID : **441009340809**
Option 2 ID : **441009340807**
Option 3 ID : **441009340806**
Option 4 ID : **441009340808**

Q.8 दिये गये वाक्य के किस भाग में त्रुटि है?
पेड़ हमें शुद्ध हवा और चाया प्रदान करते हैं।

Ans
✔ 1. चाया प्रदान
✘ 2. शुद्ध हवा और
✘ 3. पेड़ हमें
✘ 4. करते हैं।

Question ID : **44100972056**
Option 1 ID : **441009286577**
Option 2 ID : **441009286576**
Option 3 ID : **441009286575**
Option 4 ID : **441009286578**

Q.9 निम्नलिखित वाक्य खंड को उचित क्रम मे लिखें-
1- हाव-अनुभाव योजना में
2- का पूर्ण वैभव उनकी
3- दिखाई पड़ता है
4- बिहारी की रस व्यंजना

Ans
✘ 1. 3, 2, 4, 1
✘ 2. 1, 3, 2, 4
✘ 3. 2, 3, 4, 1
✔ 4. 4, 2, 1, 3

Question ID : **44100986472**
Option 1 ID : **441009343579**
Option 2 ID : **441009343578**
Option 3 ID : **441009343576**
Option 4 ID : **441009343577**

Q.10 उचित क्रिया विशेषण शब्द से वाक्य पूर्ण करें।
वह _____ सैर पर जाता है।

Ans
✔ 1. हर रोज़
✘ 2. अधिक
✘ 3. जितना
✘ 4. चाहे

Question ID : **44100977340**
Option 1 ID : **441009307352**
Option 2 ID : **441009307353**
Option 3 ID : **441009307355**
Option 4 ID : **441009307354**

QuickSarkari.com | WhatsApp Channel | Telegram: t.me/quick_sarkari

Q.11 रेखांकित शब्द का उपयुक्त पर्यायवाची चुनें ।
बारिश के बाद बच्चे झील के किनारे खेलने चले गए।

Ans
✗ 1. धूसर
✗ 2. खर
✗ 3. तृण
✓ 4. तट

Question ID : **44100972889**
Option 1 ID : **441009289883**
Option 2 ID : **441009289880**
Option 3 ID : **441009289881**
Option 4 ID : **441009289882**

Q.12 निम्न लोकोक्ति का सही अर्थ अंकित कीजिए।
अपनी गली में कुत्ता भी शेर होता है-

Ans
✗ 1. अपने बाग बगीचे में बहादुरी दिखाना
✗ 2. अपनी पत्नी संग बहादुरी दिखाना
✗ 3. अपने रंग महल में बहादुरी दिखाना
✓ 4. अपने गली-मोहल्ले में बहादुरी दिखाना

Question ID : **44100972998**
Option 1 ID : **441009290317**
Option 2 ID : **441009290319**
Option 3 ID : **441009290318**
Option 4 ID : **441009290316**

Q.13 उचित क्रिया शब्द से वाक्य पूर्ण करें-
हमने गिलास _____ है।

Ans
✗ 1. भरता
✗ 2. भरी
✗ 3. भरेगी
✓ 4. भरा

Question ID : **44100978699**
Option 1 ID : **441009312806**
Option 2 ID : **441009312803**
Option 3 ID : **441009312805**
Option 4 ID : **441009312804**

QuickSarkari.com | WhatsApp Channel | Telegram: t.me/quick_sarkari

Q.14 निम्नलिखित वाक्य में प्रयुक्त अशुद्ध वर्तनी वाले शब्द को चुनिए।

हिमालय की उपतय्का में बसे गाँव अपनी प्राकृतिक सुंदरता और अक्षुण्ण सांस्कृतिक विरासत के लिए प्रसिद्ध हैं तथा आजकल पर्यटकों के आकर्षण का केंद्र बनते जा रहे हैं।

Ans

✗ 1. सांस्कृतिक

✗ 2. अक्षुण्ण

✗ 3. पर्यटकों

✓ 4. उपतय्का

Question ID : **44100984223**
Option 1 ID : **441009334698**
Option 2 ID : **441009334695**
Option 3 ID : **441009334697**
Option 4 ID : **441009334696**

Q.15 रेखांकित शब्द का उपयुक्त पर्यायवाची चुनें ।

शस्त्रागार में पुरानी तलवारें सजाकर रखी गई हैं।

Ans

✗ 1. जनु

✓ 2. असि

✗ 3. तस्कर

✗ 4. केतन

Question ID : **44100972901**
Option 1 ID : **441009289928**
Option 2 ID : **441009289930**
Option 3 ID : **441009289929**
Option 4 ID : **441009289931**

QuickSarkari.com | WhatsApp Channel | Telegram: t.me/quick_sarkari

Comprehension:

निम्नलिखित गद्यांश के आधार पर दिए गए प्रश्नों के उत्तर दीजिए।

मनुष्य का स्वभाव बहुआयामी होता है, जिसमें कुछ लोग बहिर्मुखी होते हैं तो कुछ अंतर्मुखी। अंतर्मुखी व्यक्ति गहन विचारशील होते हैं, लेकिन उनकी मौन प्रवृत्ति को बहुधा गलत समझा जाता है।प्रत्येक व्यक्ति के मौलिक स्वभाव को स्वीकार करना आवश्यक है। अंतर्मुखी लोग गहन चिंतनशील, सृजनात्मक और सूक्ष्म दृष्टिकोण वाले होते हैं। इतिहास में अनेक वैज्ञानिक, लेखक और कलाकार अंतर्मुखी स्वभाव के रहे हैं, जिन्होंने समाज को नई दिशाएँ दी हैं। समाज की अपेक्षाएँ अंतर्मुखी व्यक्तित्व पर अनावश्यक दबाव डालती हैं, जबकि उनकी एकांतप्रियता उन्हें रचनात्मकता की ओर प्रेरित करती है। आधुनिक मनोविज्ञान भी इस तथ्य को स्वीकार करता है कि अंतर्मुखी और बहिर्मुखी दोनों स्वभाव समाज के लिए आवश्यक हैं। आत्म-सम्मान और व्यक्तिगत स्वतंत्रता बनाए रखने के लिए हमें हर प्रकार के स्वभाव को समान महत्व देना चाहिए।
यदि समाज में अंतर्मुखियों के लिए अधिक स्वीकार्यता होगी, तो वे भी अपनी प्रतिभा को पूर्ण रूप से निखार सकेंगे। इससे समाज अधिक समावेशी और संतुलित बनेगा, जहाँ प्रत्येक व्यक्ति अपनी विशेषताओं के अनुरूप योगदान देंगे।

SubQuestion No : 16

Q.16 यदि अंतर्मुखी और बहिर्मुखी दोनों स्वभावों को समान रूप से महत्व दिया जाए, तो इसका समाज की समग्र प्रगति पर क्या प्रभाव हो सकता है?

Ans

✗ 1. सामाजिक असमानता में वृद्धि हो सकती है

✗ 2. तकनीकी प्रगति धीमी हो सकती है

✗ 3. समाज में अपरिहार्य प्रतिस्पर्धा बढ़ सकती है

✓ 4. समाज का समावेशी विकास हो सकता है|

Question ID : **44100974613**
Option 1 ID : **441009296740**
Option 2 ID : **441009296741**
Option 3 ID : **441009296739**
Option 4 ID : **441009296738**

QuickSarkari.com | WhatsApp Channel | Telegram: t.me/quick_sarkari

Comprehension:

निम्नलिखित गद्यांश के आधार पर दिए गए प्रश्नों के उत्तर दीजिए।

मनुष्य का स्वभाव बहुआयामी होता है, जिसमें कुछ लोग बहिर्मुखी होते हैं तो कुछ अंतर्मुखी। अंतर्मुखी व्यक्ति गहन विचारशील होते हैं, लेकिन उनकी मौन प्रवृत्ति को बहुधा गलत समझा जाता है।प्रत्येक व्यक्ति के मौलिक स्वभाव को स्वीकार करना आवश्यक है। अंतर्मुखी लोग गहन चिंतनशील, सृजनात्मक और सूक्ष्म दृष्टिकोण वाले होते हैं। इतिहास में अनेक वैज्ञानिक, लेखक और कलाकार अंतर्मुखी स्वभाव के रहे हैं, जिन्होंने समाज को नई दिशाएँ दी हैं। समाज की अपेक्षाएँ अंतर्मुखी व्यक्तित्व पर अनावश्यक दबाव डालती हैं, जबकि उनकी एकांतप्रियता उन्हें रचनात्मकता की ओर प्रेरित करती है। आधुनिक मनोविज्ञान भी इस तथ्य को स्वीकार करता है कि अंतर्मुखी और बहिर्मुखी दोनों स्वभाव समाज के लिए आवश्यक हैं। आत्म-सम्मान और व्यक्तिगत स्वतंत्रता बनाए रखने के लिए हमें हर प्रकार के स्वभाव को समान महत्व देना चाहिए।
यदि समाज में अंतर्मुखियों के लिए अधिक स्वीकार्यता होगी, तो वे भी अपनी प्रतिभा को पूर्ण रूप से निखार सकेंगे। इससे समाज अधिक समावेशी और संतुलित बनेगा, जहाँ प्रत्येक व्यक्ति अपनी विशेषताओं के अनुरूप योगदान देंगे।

SubQuestion No : 17

Q.17 प्रस्तुत गद्यांश के लिए सर्वाधिक उपयुक्त शीर्षक का चयन कीजिए|

Ans

✔ 1. मनुष्य के नैसर्गिक स्वभाव का महत्व

✘ 2. मनुष्य के अवचेतन मन का महत्त्व

✘ 3. मनुष्य की स्वाभाविक जिज्ञासाओं का महत्त्व

✘ 4. मनुष्य की महत्त्वाकांक्षाओं का महत्त्व

Question ID : **44100974612**
Option 1 ID : **441009296735**
Option 2 ID : **441009296737**
Option 3 ID : **441009296734**
Option 4 ID : **441009296736**

Comprehension:

निम्नलिखित गद्यांश के आधार पर दिए गए प्रश्नों के उत्तर दीजिए।

मनुष्य का स्वभाव बहुआयामी होता है, जिसमें कुछ लोग बहिर्मुखी होते हैं तो कुछ अंतर्मुखी। अंतर्मुखी व्यक्ति गहन विचारशील होते हैं, लेकिन उनकी मौन प्रवृत्ति को बहुधा गलत समझा जाता है।प्रत्येक व्यक्ति के मौलिक स्वभाव को स्वीकार करना आवश्यक है। अंतर्मुखी लोग गहन चिंतनशील, सृजनात्मक और सूक्ष्म दृष्टिकोण वाले होते हैं। इतिहास में अनेक वैज्ञानिक, लेखक और कलाकार अंतर्मुखी स्वभाव के रहे हैं, जिन्होंने समाज को नई दिशाएँ दी हैं। समाज की अपेक्षाएँ अंतर्मुखी व्यक्तित्व पर अनावश्यक दबाव डालती हैं, जबकि उनकी एकांतप्रियता उन्हें रचनात्मकता की ओर प्रेरित करती है। आधुनिक मनोविज्ञान भी इस तथ्य को स्वीकार करता है कि अंतर्मुखी और बहिर्मुखी दोनों स्वभाव समाज के लिए आवश्यक हैं। आत्म-सम्मान और व्यक्तिगत स्वतंत्रता बनाए रखने के लिए हमें हर प्रकार के स्वभाव को समान महत्व देना चाहिए।
यदि समाज में अंतर्मुखियों के लिए अधिक स्वीकार्यता होगी, तो वे भी अपनी प्रतिभा को पूर्ण रूप से निखार सकेंगे। इससे समाज अधिक समावेशी और संतुलित बनेगा, जहाँ प्रत्येक व्यक्ति अपनी विशेषताओं के अनुरूप योगदान देंगे।

SubQuestion No : 18

Q.18 समाज की अपेक्षाएँ अंतर्मुखी व्यक्तियों पर क्या प्रभाव डाल सकती हैं?

Ans

✘ 1. सतत् समर्थन

✘ 2. अनिवार्य प्रेरणा

✘ 3. रचनात्मक चिंतन

✔ 4. अनावश्यक दबाव

Question ID : **44100974611**
Option 1 ID : **441009296732**
Option 2 ID : **441009296731**
Option 3 ID : **441009296733**
Option 4 ID : **441009296730**

Comprehension:

निम्नलिखित गद्यांश के आधार पर दिए गए प्रश्नों के उत्तर दीजिए।

मनुष्य का स्वभाव बहुआयामी होता है, जिसमें कुछ लोग बहिर्मुखी होते हैं तो कुछ अंतर्मुखी। अंतर्मुखी व्यक्ति गहन विचारशील होते हैं, लेकिन उनकी मौन प्रवृत्ति को बहुधा गलत समझा जाता है।प्रत्येक व्यक्ति के मौलिक स्वभाव को स्वीकार करना आवश्यक है। अंतर्मुखी लोग गहन चिंतनशील, सृजनात्मक और सूक्ष्म दृष्टिकोण वाले होते हैं। इतिहास में अनेक वैज्ञानिक, लेखक और कलाकार अंतर्मुखी स्वभाव के रहे हैं, जिन्होंने समाज को नई दिशाएँ दी हैं। समाज की अपेक्षाएँ अंतर्मुखी व्यक्तित्व पर अनावश्यक दबाव डालती हैं, जबकि उनकी एकांतप्रियता उन्हें रचनात्मकता की ओर प्रेरित करती है। आधुनिक मनोविज्ञान भी इस तथ्य को स्वीकार करता है कि अंतर्मुखी और बहिर्मुखी दोनों स्वभाव समाज के लिए आवश्यक हैं। आत्म-सम्मान और व्यक्तिगत स्वतंत्रता बनाए रखने के लिए हमें हर प्रकार के स्वभाव को समान महत्व देना चाहिए।
यदि समाज में अंतर्मुखियों के लिए अधिक स्वीकार्यता होगी, तो वे भी अपनी प्रतिभा को पूर्ण रूप से निखार सकेंगे। इससे समाज अधिक समावेशी और संतुलित बनेगा, जहाँ प्रत्येक व्यक्ति अपनी विशेषताओं के अनुरूप योगदान देंगे।

SubQuestion No : 19

Q.19 यदि अंतर्मुखी व्यक्तियों को उनकी विशेषताओं के अनुसार कार्य करने का अवसर मिलता है, तो इसका समाज के रचनात्मक क्षेत्रों पर क्या प्रभाव हो सकता है?

Ans

✗ 1. संवाद और प्रमाद में वृद्धि

✗ 2. प्रतिस्पर्धा और उद्यमिता में वृद्धि

✗ 3. पारंपरिकता और अनाचार में वृद्धि

✓ 4. नवाचार और उत्पादकता में वृद्धि

Question ID : **44100974614**
Option 1 ID : **441009296745**
Option 2 ID : **441009296744**
Option 3 ID : **441009296743**
Option 4 ID : **441009296742**

QuickSarkari.com | WhatsApp Channel | Telegram: t.me/quick_sarkari

Comprehension:

निम्नलिखित गद्यांश के आधार पर दिए गए प्रश्नों के उत्तर दीजिए।

मनुष्य का स्वभाव बहुआयामी होता है, जिसमें कुछ लोग बहिर्मुखी होते हैं तो कुछ अंतर्मुखी। अंतर्मुखी व्यक्ति गहन विचारशील होते हैं, लेकिन उनकी मौन प्रवृत्ति को बहुधा गलत समझा जाता है।प्रत्येक व्यक्ति के मौलिक स्वभाव को स्वीकार करना आवश्यक है। अंतर्मुखी लोग गहन चिंतनशील, सृजनात्मक और सूक्ष्म दृष्टिकोण वाले होते हैं। इतिहास में अनेक वैज्ञानिक, लेखक और कलाकार अंतर्मुखी स्वभाव के रहे हैं, जिन्होंने समाज को नई दिशाएँ दी हैं। समाज की अपेक्षाएँ अंतर्मुखी व्यक्तित्व पर अनावश्यक दबाव डालती हैं, जबकि उनकी एकांतप्रियता उन्हें रचनात्मकता की ओर प्रेरित करती है। आधुनिक मनोविज्ञान भी इस तथ्य को स्वीकार करता है कि अंतर्मुखी और बहिर्मुखी दोनों स्वभाव समाज के लिए आवश्यक हैं। आत्म-सम्मान और व्यक्तिगत स्वतंत्रता बनाए रखने के लिए हमें हर प्रकार के स्वभाव को समान महत्व देना चाहिए।
यदि समाज में अंतर्मुखियों के लिए अधिक स्वीकार्यता होगी, तो वे भी अपनी प्रतिभा को पूर्ण रूप से निखार सकेंगे। इससे समाज अधिक समावेशी और संतुलित बनेगा, जहाँ प्रत्येक व्यक्ति अपनी विशेषताओं के अनुरूप योगदान देंगे।

SubQuestion No : 20

Q.20 प्रस्तुत गद्यांश के अनुसार अंतर्मुखी व्यक्तियों की एकांतप्रियता उन्हें किस ओर प्रेरित करती है?

Ans
✗ 1. सम्प्रेषण की ओर
✓ 2. रचनात्मकता की ओर
✗ 3. उद्दंडता की ओर
✗ 4. मुखरता की ओर

Question ID : **44100974610**
Option 1 ID : **441009296728**
Option 2 ID : **441009296727**
Option 3 ID : **441009296729**
Option 4 ID : **441009296726**

Section : **Discipline1**

Q.1 Which ethical theory in social work emphasises duty and adherence to rules, over consequences?

Ans
✗ 1. Utilitarianism
✓ 2. Deontology
✗ 3. Relativism
✗ 4. Virtue Ethics

Question ID : **441009652043**
Option 1 ID : **4410092562441**
Option 2 ID : **4410092562442**
Option 3 ID : **4410092562443**
Option 4 ID : **4410092562444**

Q.2 **Social work is a systematic way of helping individuals and groups towards better adaption to _____.**

Ans
✗ 1. family
✗ 2. colleagues
✗ 3. friends
✓ 4. society

Question ID : **441009652044**
Option 1 ID : **4410092562446**
Option 2 ID : **4410092562448**
Option 3 ID : **4410092562447**
Option 4 ID : **4410092562445**

Q.3 **What are the main types of labour welfare as categorised under Labour Law?**

Ans
✗ 1. Monetary and non-monetary welfare
✓ 2. Statutory and non-statutory welfare
✗ 3. Safety and hazard welfare
✗ 4. Industrial and individual welfare

Question ID : **441009652051**
Option 1 ID : **4410092562473**
Option 2 ID : **4410092562475**
Option 3 ID : **4410092562476**
Option 4 ID : **4410092562474**

Q.4 **The scope of Labour Welfare Laws in India includes services and amenities that improve the health, _____, and well-being of workers.**

Ans
✗ 1. integrity
✓ 2. safety
✗ 3. secrecy
✗ 4. privacy

Question ID : **441009652056**
Option 1 ID : **4410092562495**
Option 2 ID : **4410092562494**
Option 3 ID : **4410092562493**
Option 4 ID : **4410092562496**

Q.5 **The Indian Trade Union Act, 1926, was a result of recommendations made by the:**

Ans
✗ 1. Trade Union Congress
✗ 2. Indian Industrial Commission
✓ 3. Royal Commission on Labour in India
✗ 4. National Planning Committee

Question ID : **441009651921**
Option 1 ID : **4410092561956**
Option 2 ID : **4410092561955**
Option 3 ID : **4410092561953**
Option 4 ID : **4410092561954**

QuickSarkari.com | WhatsApp Channel | Telegram: t.me/quick_sarkari

Q.6 **Which provision of the Industrial Disputes Act,1947 specifically deals with setting up of Grievance Settlement Authorities and reference of certain individual disputes to such authorities?**

Ans
- ✔ 1. 9C
- ✘ 2. 9A
- ✘ 3. 8B
- ✘ 4. 8A

Question ID : **441009652012**
Option 1 ID : **4410092562320**
Option 2 ID : **4410092562319**
Option 3 ID : **4410092562318**
Option 4 ID : **4410092562317**

Q.7 **Which legislation refers to the laws designed to improve the working conditions, rights, and well being of employees in India?**

Ans
- ✘ 1. Political welfare legislation
- ✔ 2. Labour welfare legislation
- ✘ 3. Economic welfare legislation
- ✘ 4. Environmental welfare legislation

Question ID : **441009652052**
Option 1 ID : **4410092562480**
Option 2 ID : **4410092562478**
Option 3 ID : **4410092562479**
Option 4 ID : **4410092562477**

Q.8 **Which Provision of Occupational Safety, Health and Working Conditions Code, 2020, deals with Responsibility of Employer for maintaining health, safety and working conditions?**

Ans
- ✘ 1. Section 25
- ✘ 2. Section 22
- ✔ 3. Section 23
- ✘ 4. Section 24

Question ID : **441009652054**
Option 1 ID : **4410092562488**
Option 2 ID : **4410092562485**
Option 3 ID : **4410092562486**
Option 4 ID : **4410092562487**

QuickSarkari.com | WhatsApp Channel | Telegram: t.me/quick_sarkari

Q.9 **Occupational diseases are listed under which Schedule of Occupational Safety, Health and Working Conditions Code, 2020?**

Ans

✗ 1. Fourth Schedule

✗ 2. Second Schedule

✓ 3. First Schedule

✗ 4. Third Schedule

Question ID : **441009652053**
Option 1 ID : **4410092562484**
Option 2 ID : **4410092562482**
Option 3 ID : **4410092562481**
Option 4 ID : **4410092562483**

Q.10 **What is the primary focus of the human relations approach in handling industrial disputes?**

Ans

✗ 1. Increasing profitability through good governance

✓ 2. Enhancing employer-employee relationships

✗ 3. Reducing government intervention

✗ 4. Legal compliance and misgovernance

Question ID : **441009651923**
Option 1 ID : **4410092561963**
Option 2 ID : **4410092561962**
Option 3 ID : **4410092561964**
Option 4 ID : **4410092561961**

Q.11 **Among the following Conventions of ILO, which deals with Occupational Safety and Health Convention?**

Ans

✓ 1. Convention No. 155

✗ 2. Convention No. 145

✗ 3. Convention No. 157

✗ 4. Convention No. 152

Question ID : **441009652047**
Option 1 ID : **4410092562459**
Option 2 ID : **4410092562457**
Option 3 ID : **4410092562460**
Option 4 ID : **4410092562458**

QuickSarkari.com | WhatsApp Channel | Telegram: t.me/quick_sarkari

Q.12 **Among the following legislations, which is enacted to mitigate the effect of industrial accidents?**

Ans
- ✗ 1. Employees Compensation Act, 1936
- ✗ 2. Workmen's Compensation Act, 1923
- ✓ 3. Factories Act, 1948
- ✗ 4. Industrial Disputes Act, 1947

Question ID : **441009652048**
Option 1 ID : **4410092562462**
Option 2 ID : **4410092562461**
Option 3 ID : **4410092562463**
Option 4 ID : **4410092562464**

Q.13 **What are the strategies involved in social work?**

Ans
- ✓ 1. Counseling, Education, Case management
- ✗ 2. Selling, Education, Case management
- ✗ 3. Education, Community Service, File management
- ✗ 4. Negotiation, Arbitration, File management

Question ID : **441009652017**
Option 1 ID : **4410092562337**
Option 2 ID : **4410092562340**
Option 3 ID : **4410092562339**
Option 4 ID : **4410092562338**

Q.14 **Which of the following is NOT an international convention related to social work practice and action?**

Ans
- ✗ 1. Universal Declaration of Human Rights
- ✗ 2. The International Covenant on Economic, Social and Cultural Rights
- ✗ 3. The United Nation Commission on International Trade Law
- ✓ 4. The International Covenant on Civil and Political Rights

Question ID : **441009652018**
Option 1 ID : **4410092562341**
Option 2 ID : **4410092562343**
Option 3 ID : **4410092562344**
Option 4 ID : **4410092562342**

QuickSarkari.com | WhatsApp Channel | Telegram: t.me/quick_sarkari

Q.15 Which of the following reasons amounted to the evolution of Labour Laws in India?

Ans
✗ 1. To ensure high cost of labourers
✓ 2. To protect the interest of the labourers
✗ 3. To ensure violation of the rights of the labourers
✗ 4. To support right to unorganise

Question ID : **441009652015**
Option 1 ID : **4410092562329**
Option 2 ID : **4410092562332**
Option 3 ID : **4410092562331**
Option 4 ID : **4410092562330**

Q.16 Which of the following constitutes a method of recognition of Trade Union?

Ans
✗ 1. Involuntary recognition
✗ 2. Recognition by Mismanagement
✓ 3. Statutory recognition
✗ 4. Secondary recognition

Question ID : **441009652009**
Option 1 ID : **4410092562305**
Option 2 ID : **4410092562307**
Option 3 ID : **4410092562306**
Option 4 ID : **4410092562308**

Q.17 Principles of _____ and social justice are fundamental to social work.

Ans
✗ 1. criminal rights
✗ 2. civil rights
✗ 3. natural rights
✓ 4. human rights

Question ID : **441009652020**
Option 1 ID : **4410092562352**
Option 2 ID : **4410092562351**
Option 3 ID : **4410092562350**
Option 4 ID : **4410092562349**

Q.18 Among the following Conventions, which is the ILO social security Convention?

Ans
✗ 1. The Social Security (Minimum Standards) Convention, 1953 (No. 104)
✗ 2. The Social Security (Minimum Standards) Convention, 1954 (No. 105)
✗ 3. The Social Security (Minimum Standards) Convention, 1951 (No. 98)
✓ 4. The Social Security (Minimum Standards) Convention, 1952 (No. 102)

Question ID : **441009652042**
Option 1 ID : **4410092562439**
Option 2 ID : **4410092562440**
Option 3 ID : **4410092562437**
Option 4 ID : **4410092562438**

QuickSarkari.com | WhatsApp Channel | Telegram: t.me/quick_sarkari

Q.19 **The basic aim of industrial health is:**

Ans
✗ 1. protection from accidents
✗ 2. curative or symptomatic medicine
✗ 3. prevention against injury
✓ 4. protection and prevention of diseases

Question ID : **441009652049**
Option 1 ID : **4410092562467**
Option 2 ID : **4410092562466**
Option 3 ID : **4410092562465**
Option 4 ID : **4410092562468**

Q.20 **Which theory of labour welfare emphasises that welfare measures are essential to maintain industrial peace?**

Ans
✗ 1. Philanthropic Theory
✗ 2. Public Relations Theory
✓ 3. Placating Theory
✗ 4. Religious Theory

Question ID : **441009652050**
Option 1 ID : **4410092562470**
Option 2 ID : **4410092562472**
Option 3 ID : **4410092562471**
Option 4 ID : **4410092562469**

Section : **Discipline2**

Q.1 **What does the concept of tripartism in industrial relations involve?**

Ans
✗ 1. A system where only employees and employers negotiate
✓ 2. Collaboration between employees, employers, and the government
✗ 3. A global agreement between three different countries
✗ 4. Partnership among three multinational companies

Question ID : **441009652038**
Option 1 ID : **4410092562423**
Option 2 ID : **4410092562421**
Option 3 ID : **4410092562424**
Option 4 ID : **4410092562422**

Q.2 **Which of the following describes the Human Resource Information System?**

Ans

✗ 1. It is a type of malware that destroys the organisation's employee related information.

✗ 2. It is a cyber security threat that disrupts smooth functioning of the Human Resource system.

✓ 3. It is a software solution that is used to collect, manage, store, and process an organisation's employee information.

✗ 4. It is a hardware solution that is used to collect, manage, store, and process an organisation's employee information.

Question ID : **441009652000**
Option 1 ID : **4410092562271**
Option 2 ID : **4410092562272**
Option 3 ID : **4410092562269**
Option 4 ID : **4410092562270**

Q.3 **Where can a bill for the Amendment of the Constitution of India be introduced?**

Ans

✗ 1. State Legislature

✗ 2. Municipalities

✗ 3. Panchayat

✓ 4. Either house of the Parliament

Question ID : **441009651984**
Option 1 ID : **4410092562207**
Option 2 ID : **4410092562205**
Option 3 ID : **4410092562206**
Option 4 ID : **4410092562208**

Q.4 **Which of the following is a primary cause of conflict in industrial relations?.**

Ans

✗ 1. Differences in political ideologies

✗ 2. Lack of recreational facilities

✓ 3. Wage disputes and working conditions

✗ 4. Advancement of technology

Question ID : **441009652039**
Option 1 ID : **4410092562425**
Option 2 ID : **4410092562428**
Option 3 ID : **4410092562426**
Option 4 ID : **4410092562427**

Q.5 **Which of the following is an example of an HRD intervention?**

Ans

✗ 1. Cost reduction strategies and productivity

✓ 2. Leadership development programs

✗ 3. Equipment procurement and policies

✗ 4. Outsourcing of HR functions

Question ID : **441009651927**
Option 1 ID : **4410092561978**
Option 2 ID : **4410092561977**
Option 3 ID : **4410092561979**
Option 4 ID : **4410092561980**

Q.6 **Which of the following is NOT a feature of an inter-union rivalry?**

Ans
- ✔ 1. Collective goal of achieving best possible working conditions
- ✘ 2. Leads to fragmented labour movement
- ✘ 3. Competition or conflicts between different trade unions
- ✘ 4. Weakens collective bargaining power

Question ID : **441009652008**
Option 1 ID : **4410092562303**
Option 2 ID : **4410092562302**
Option 3 ID : **4410092562301**
Option 4 ID : **4410092562304**

Q.7 **Regular HR audits help identify and mitigate _____ associated with HR practices.**

Ans
- ✘ 1. security
- ✘ 2. dependability
- ✘ 3. reliability
- ✔ 4. risks

Question ID : **441009652001**
Option 1 ID : **4410092562276**
Option 2 ID : **4410092562275**
Option 3 ID : **4410092562274**
Option 4 ID : **4410092562273**

Q.8 **What is the minimum requirement of members for registering a trade union under the Trade Union Act, 1926?**

Ans
- ✘ 1. Any eleven or more members
- ✔ 2. Any seven or more members
- ✘ 3. Any twelve or more members
- ✘ 4. Any nine or more members

Question ID : **441009652022**
Option 1 ID : **4410092562359**
Option 2 ID : **4410092562357**
Option 3 ID : **4410092562360**
Option 4 ID : **4410092562358**

Q.9 **Under the Payment of Bonus Act, 1965, a worker is disqualified for bonus if they are dismissed for _____.**

Ans
- ✔ 1. a riotous behaviour
- ✘ 2. misrepresentation
- ✘ 3. a mistake
- ✘ 4. a disagreement

Question ID : **441009651951**
Option 1 ID : **4410092562073**
Option 2 ID : **4410092562075**
Option 3 ID : **4410092562076**
Option 4 ID : **4410092562074**

Q.10 Identify the effect of an Industrial Dispute in society from the following.

Ans

✗ 1. Decrease in inflation

✗ 2. Decrease in cost of living

✗ 3. Promotion of economic welfare of the nation

✓ 4. Loss of production, income, and employment

Question ID : **441009652006**
Option 1 ID : **4410092562293**
Option 2 ID : **4410092562296**
Option 3 ID : **4410092562295**
Option 4 ID : **4410092562294**

Q.11 What is the primary objective of an industrial relations system?

Ans

✗ 1. To boost corporate profits and productivity

✗ 2. To enforce strict management policies and good governance

✓ 3. To ensure industrial peace and productivity

✗ 4. To increase worker efficiency and welfare

Question ID : **441009651924**
Option 1 ID : **4410092561967**
Option 2 ID : **4410092561968**
Option 3 ID : **4410092561966**
Option 4 ID : **4410092561965**

Q.12 What was the primary reason for the introduction of the Indian Trade Union Act, 1926, as per its Preamble?

Ans

✗ 1. To encourage employers to form associations and ensure collective baragining

✓ 2. To formalise the legal framework for the registration of Trade Unions and to define the law relating to registered Trade Unions

✗ 3. To promote foreign trade and trade unionism in the country to protect employees

✗ 4. To improve the condition of labour in India

Question ID : **441009652036**
Option 1 ID : **4410092562415**
Option 2 ID : **4410092562414**
Option 3 ID : **4410092562413**
Option 4 ID : **4410092562416**

Q.13 What does the scope of industrial disputes primarily include?

Ans

✗ 1. Personal disputes among employees and employers

✓ 2. Conflicts related to employment terms and conditions

✗ 3. Salary negotiations of CEOs and employees

✗ 4. Recruitment of national and foreign workers

Question ID : **441009651922**
Option 1 ID : **4410092561959**
Option 2 ID : **4410092561958**
Option 3 ID : **4410092561957**
Option 4 ID : **4410092561960**

Q.14 What is the main function of a Human Resource Information System?

Ans
✗ 1. Enhancing marketing strategies and sharing knowledge
✗ 2. Monitoring financial accounts and ensuring transparency
✓ 3. Storing and managing employee-related information
✗ 4. Controlling inventory systems and accounting effectively

Question ID : **441009651928**
Option 1 ID : **4410092561982**
Option 2 ID : **4410092561983**
Option 3 ID : **4410092561981**
Option 4 ID : **4410092561984**

Q.15 Which of the following is a Human Resource Development Mechanism?

Ans
✗ 1. Inventory control
✓ 2. Employee counselling
✗ 3. Financial audits
✗ 4. IT system upgrades

Question ID : **441009652035**
Option 1 ID : **4410092562409**
Option 2 ID : **4410092562411**
Option 3 ID : **4410092562412**
Option 4 ID : **4410092562410**

Q.16 Which of the following is NOT a Human Resource model?

Ans
✗ 1. The Ulrich Model
✗ 2. The Warwick Model
✗ 3. The Harvard Model
✓ 4. The HR nugatory Chain

Question ID : **441009652003**
Option 1 ID : **4410092562282**
Option 2 ID : **4410092562281**
Option 3 ID : **4410092562284**
Option 4 ID : **4410092562283**

Q.17 Human resource management (HRM) is a strategic method for organising, leading, and growing a company's staff, which includes hiring, choosing, _____ performance management, and professional growth.

Ans
✗ 1. wagering
✗ 2. gambling
✓ 3. training
✗ 4. bluffing

Question ID : **441009652004**
Option 1 ID : **4410092562285**
Option 2 ID : **4410092562287**
Option 3 ID : **4410092562286**
Option 4 ID : **4410092562288**

Q.18 **Which of the following is NOT an approach to promote industrial relations?**

Ans
- ✗ 1. Marxist approach
- ✗ 2. Unitary approach
- ✓ 3. Non-Gandhian approach
- ✗ 4. Pluralist approach

Question ID : **441009652014**
Option 1 ID : **4410092562327**
Option 2 ID : **4410092562325**
Option 3 ID : **4410092562328**
Option 4 ID : **4410092562326**

Q.19 **Bipartism is a system of industrial relations, where social and _____ issues are discussed between trade unions and management.**

Ans
- ✗ 1. international
- ✓ 2. labour
- ✗ 3. business
- ✗ 4. emotional

Question ID : **441009652013**
Option 1 ID : **4410092562324**
Option 2 ID : **4410092562321**
Option 3 ID : **4410092562322**
Option 4 ID : **4410092562323**

Q.20 **Which historic case marks the origin of the passing of the Trade Unions Act in India?**

Ans
- ✓ 1. Buckingham Mill case
- ✗ 2. Lee vs Lee's Air Farming case
- ✗ 3. Vishaka's case
- ✗ 4. Kesavananda Bharati's case

Question ID : **441009652011**
Option 1 ID : **4410092562313**
Option 2 ID : **4410092562316**
Option 3 ID : **4410092562315**
Option 4 ID : **4410092562314**

Section : **Discipline3**

Q.1 **Under the Trade Unions Act, 1926, which section grants registered trade unions immunity from certain civil suits?**

Ans
- ✗ 1. Section 20
- ✗ 2. Section 13
- ✓ 3. Section 18
- ✗ 4. Section 17

Question ID : **441009651929**
Option 1 ID : **4410092561988**
Option 2 ID : **4410092561985**
Option 3 ID : **4410092561987**
Option 4 ID : **4410092561986**

Q.2 **Which principle of natural justice ensures that no one can be a judge in their own cause?**

Ans
- ✗ 1. Res judicata
- ✗ 2. Doctrine of estoppel
- ✓ 3. Nemo judex in causa sua
- ✗ 4. Audi alteram partem

Question ID : **441009651931**
Option 1 ID : **4410092561996**
Option 2 ID : **4410092561995**
Option 3 ID : **4410092561994**
Option 4 ID : **4410092561993**

Q.3 **Which of the following is considered as an exception to the principle of Natural Justice?**

Ans
- ✗ 1. Doctrine of Reasoned Decision
- ✗ 2. Doctrine of Bias
- ✓ 3. Doctrine of Necessity
- ✗ 4. Doctrine of Hearing

Question ID : **441009651994**
Option 1 ID : **4410092562248**
Option 2 ID : **4410092562246**
Option 3 ID : **4410092562245**
Option 4 ID : **4410092562247**

Q.4 **The principle of 'audi alteram partem' ensures that:**

Ans
- ✗ 1. a decision can be made without evidence
- ✗ 2. the decision is final
- ✓ 3. both parties have the right to be heard
- ✗ 4. a judge cannot overturn previous decisions

Question ID : **441009651932**
Option 1 ID : **4410092562000**
Option 2 ID : **4410092561997**
Option 3 ID : **4410092561998**
Option 4 ID : **4410092561999**

Q.5 **A certificate of registration is issued under which of the following provisions of the Trade Unions Act, 1926?**

Ans
✔ 1. Section 9
✘ 2. Section 11
✘ 3. Section 8
✘ 4. Section 10

Question ID : **441009651995**
Option 1 ID : **4410092562250**
Option 2 ID : **4410092562252**
Option 3 ID : **4410092562249**
Option 4 ID : **4410092562251**

Q.6 **Which of the following is NOT depicted under the Rules of a Trade Union, according to section 6 of the Trade Union Act 1926?**

Ans
✘ 1. The name of trade union
✘ 2. The whole of the purposes for which the general funds of the trade union shall be applicable
✔ 3. The manner in which the trade union may not be dissolved
✘ 4. The whole of the objects for which the trade union has been established

Question ID : **441009651988**
Option 1 ID : **4410092562221**
Option 2 ID : **4410092562222**
Option 3 ID : **4410092562224**
Option 4 ID : **4410092562223**

Q.7 **As per The Employees' Provident Funds and Miscellaneous Provisions Act, 1952, who contributes an equal share to the Employees Provident Fund?.**

Ans
✘ 1. Employee only
✘ 2. State Government
✔ 3. Employee and employer
✘ 4. Employer only

Question ID : **441009652026**
Option 1 ID : **4410092562373**
Option 2 ID : **4410092562376**
Option 3 ID : **4410092562375**
Option 4 ID : **4410092562374**

Q.8 What is the penalty for an illegal strike under the Industrial Disputes Act, 1947?

Ans
✗ 1. ₹10,000 fine or one year imprisonment
✓ 2. ₹50 fine and imprisonment up to one month
✗ 3. ₹5,000 fine or one year imprisonment
✗ 4. ₹1,000 fine or imprisonment up to one month

Question ID : **441009651935**
Option 1 ID : **4410092562012**
Option 2 ID : **4410092562009**
Option 3 ID : **4410092562011**
Option 4 ID : **4410092562010**

Q.9 What is issued to the employer when a motor transport undertaking is registered under The Motor Transport Workers Act,1961?

Ans
✗ 1. A handwritten document of registration
✗ 2. An email of registration
✗ 3. A speed post of a letter stating registration
✓ 4. A certificate of registration

Question ID : **441009651968**
Option 1 ID : **4410092562143**
Option 2 ID : **4410092562141**
Option 3 ID : **4410092562144**
Option 4 ID : **4410092562142**

Q.10 The enforcement of collective bargaining agreements is primarily ensured by:

Ans
✗ 1. government committees and other bodies
✗ 2. employer goodwill and welfare approach
✓ 3. arbitration and legal mechanisms
✗ 4. informal employee negotiations

Question ID : **441009652031**
Option 1 ID : **4410092562396**
Option 2 ID : **4410092562394**
Option 3 ID : **4410092562393**
Option 4 ID : **4410092562395**

Q.11 Under which Article of the Constitution of India can the President of India proclaim a National Emergency?

Ans
✗ 1. Article 356
✓ 2. Article 352
✗ 3. Article 368
✗ 4. Article 360

Question ID : **441009651956**
Option 1 ID : **4410092562094**
Option 2 ID : **4410092562093**
Option 3 ID : **4410092562096**
Option 4 ID : **4410092562095**

Q.12 **What type of Bias is constituted when a decision-maker intends to gain a financial benefit, no matter how small, from the outcome of the case?**

Ans
- ✗ 1. Confirmation Bias
- ✗ 2. Historical Bias
- ✗ 3. Selection Bias
- ✓ 4. Pecuniary Bias

Question ID : **441009651993**
Option 1 ID : **4410092562242**
Option 2 ID : **4410092562241**
Option 3 ID : **4410092562243**
Option 4 ID : **4410092562244**

Q.13 **A supportive HRD culture promotes:**

Ans
- ✗ 1. quick dismissals of underperforming employees
- ✓ 2. open communication and trust
- ✗ 3. segregated work environments
- ✗ 4. an increased workload without rewards

Question ID : **441009651926**
Option 1 ID : **4410092561975**
Option 2 ID : **4410092561973**
Option 3 ID : **4410092561976**
Option 4 ID : **4410092561974**

Q.14 **Under the Trade Unions Act, 1926, within how many days must a copy of every alteration made in the rules of a registered Trade Union be sent to the Registrar?**

Ans
- ✗ 1. 7 days
- ✗ 2. 60 days
- ✗ 3. 30 days
- ✓ 4. 15 days

Question ID : **441009651955**
Option 1 ID : **4410092562089**
Option 2 ID : **4410092562092**
Option 3 ID : **4410092562091**
Option 4 ID : **4410092562090**

QuickSarkari.com | WhatsApp Channel | Telegram: t.me/quick_sarkari

Q.15 **Human Resource Accounting is a type of accounting that seeks to determine the cost and _____ of the people, also known as human capital, working in an organisation.**

Ans

✗ 1. finance

✗ 2. budget

✓ 3. value

✗ 4. revenue

Question ID : **441009652002**
Option 1 ID : **4410092562280**
Option 2 ID : **4410092562279**
Option 3 ID : **4410092562277**
Option 4 ID : **4410092562278**

Q.16 **Which provision of the Industrial Disputes Act, 1947, deals with the Reference of disputes to Boards, Courts, or Tribunals?**

Ans

✓ 1. Section 10

✗ 2. Section 8

✗ 3. Section 7

✗ 4. Section 9

Question ID : **441009651989**
Option 1 ID : **4410092562225**
Option 2 ID : **4410092562227**
Option 3 ID : **4410092562228**
Option 4 ID : **4410092562226**

Q.17 **Under the Trade Unions Act, 1926, how much prior notice must the Registrar give to a trade union before withdrawing or cancelling its registration, except when done at the union's request?**

Ans

✗ 1. No notice is required

✗ 2. One month

✗ 3. Three months

✓ 4. Two months

Question ID : **441009651954**
Option 1 ID : **4410092562088**
Option 2 ID : **4410092562085**
Option 3 ID : **4410092562087**
Option 4 ID : **4410092562086**

Q.18 **What is the term period of imprisonment in case of failure to pay any amount of maternity benefit to a woman entitled under the Maternity Benefit Act,1961?**

Ans

✗ 1. Minimum nine months imprisonment to one year

✓ 2. Minimum three months imprisonment to one year

✗ 3. Minimum one year imprisonment to two years

✗ 4. Minimum six months imprisonment to one year

Question ID : **441009651958**
Option 1 ID : **4410092562102**
Option 2 ID : **4410092562101**
Option 3 ID : **4410092562104**
Option 4 ID : **4410092562103**

Q.19 **'B' borrowed ₹10,000 from 'A' on the condition of repayment within six months, however, after six months 'B' refuses to pay. 'A' approached civil court for recovery of the said debt. 'C', a good friend of 'B', happens to be the judge of that civil court. In light of the stated scenario, identify the type of Bias that may be exercised by 'C', if he deals with the case, since he is a good friend of 'B'.**

Ans

✗ 1. Bias on Account of Obstinacy

✗ 2. Reporting Bias

✗ 3. Departmental Bias

✓ 4. Personal Bias

Question ID : **441009651992**
Option 1 ID : **4410092562239**
Option 2 ID : **4410092562240**
Option 3 ID : **4410092562238**
Option 4 ID : **4410092562237**

Q.20 **What is classified as an industrial dispute under the Industrial Disputes Act, 1947?**

Ans

✗ 1. Individual conflicts related to employment and governance

✓ 2. Any dispute or difference between employers and employers, connected with the employment or non-employment or the terms of employment or with the conditions of labour, of any person

✗ 3. Personal disagreements between employees and employers

✗ 4. Conflicts between employees, employers, and local authorities

Question ID : **441009651934**
Option 1 ID : **4410092562008**
Option 2 ID : **4410092562006**
Option 3 ID : **4410092562005**
Option 4 ID : **4410092562007**

Section : **Discipline4**

Q.1 **What is the extent of applicability of the Factories Act, 1948?**

Ans

✗ 1. It extends to the whole of Karnataka.

✓ 2. It extends to the whole of India.

✗ 3. It extends to the whole of Bihar.

✗ 4. It extends to whole of Bengal.

Question ID : **441009651971**
Option 1 ID : **4410092562153**
Option 2 ID : **4410092562156**
Option 3 ID : **4410092562154**
Option 4 ID : **4410092562155**

Q.2 **What is the minimum notice period required for retrenchment, under the Industrial Disputes Act, 1947?**

Ans

✓ 1. One month

✗ 2. 15 days

✗ 3. Two months

✗ 4. 45 days

Question ID : **441009652030**
Option 1 ID : **4410092562390**
Option 2 ID : **4410092562389**
Option 3 ID : **4410092562392**
Option 4 ID : **4410092562391**

Q.3 **As per the Workmen's Compensation Act,1923, the employer shall incur liability in which of the following instances?**

Ans

✗ 1. If the injury sustained to a worker does not result in total or partial disablement for more than three days

✗ 2. If the worker was under intoxication from drugs or alcohol

✓ 3. If a worker suffered personal injury by accidents arising out of and in the course of his employment

✗ 4. If the injury was caused by the worker's willful disobedience of safety rules

Question ID : **441009651965**
Option 1 ID : **4410092562129**
Option 2 ID : **4410092562132**
Option 3 ID : **4410092562130**
Option 4 ID : **4410092562131**

QuickSarkari.com | WhatsApp Channel | Telegram: t.me/quick_sarkari

Q.4 **According to Section 4 of the Employees Compensation Act, 1923, which of the following constitutes an amount of compensation in case of death of an employee due to an injury?**

Ans

✗ 1. Forty per cent of the deceased employee's monthly wages multiplied by the relevant factor, or ₹1,20,000, whichever is more

✗ 2. Twenty per cent of the deceased employee's monthly wages multiplied by the relevant factor, or ₹1,20,000, whichever is more

✗ 3. Sixty per cent of the deceased employee's monthly wages multiplied by the relevant factor, or ₹1,20,000, whichever is more

✓ 4. Fifty per cent of the deceased employee's monthly wages multiplied by the relevant factor, or ₹1,20,000, whichever is more

Question ID : **441009651964**
Option 1 ID : **4410092562128**
Option 2 ID : **4410092562127**
Option 3 ID : **4410092562126**
Option 4 ID : **4410092562125**

Q.5 **Which of the following constitutes as an advantage of collective bargaining?**

Ans

✗ 1. Higher consumer prices

✗ 2. Lower productivity growth

✓ 3. Fairer work rules and policies

✗ 4. Higher labour costs for employers

Question ID : **441009651999**
Option 1 ID : **4410092562267**
Option 2 ID : **4410092562266**
Option 3 ID : **4410092562268**
Option 4 ID : **4410092562265**

Q.6 **Who appoints the Commissioner under the Workmen's Compensation Act, 1923?**

Ans

✗ 1. Central Government

✗ 2. Local Authority

✓ 3. State Government

✗ 4. High Court

Question ID : **441009651953**
Option 1 ID : **4410092562081**
Option 2 ID : **4410092562084**
Option 3 ID : **4410092562082**
Option 4 ID : **4410092562083**

QuickSarkari.com | WhatsApp Channel | Telegram: t.me/quick_sarkari

Q.7 **What is the penalty for obstructing an Inspector under the Contract Labour Act, 1970?**

Ans

✗ 1. ₹2,000 fine or imprisonment up to six months

✗ 2. ₹5,000 fine

✓ 3. ₹500 fine or imprisonment up to three months

✗ 4. ₹10,000 fine or imprisonment up to one year

Question ID : **441009651942**
Option 1 ID : **4410092562039**
Option 2 ID : **4410092562037**
Option 3 ID : **4410092562038**
Option 4 ID : **4410092562040**

Q.8 **As per Section 5 of The Payment of Bonus Act,1965, the available surplus in respect of any accounting year shall be the _____ for that year after deducting therefrom the sums mentioned.**

Ans

✗ 1. gross loss

✓ 2. gross profit

✗ 3. net profit

✗ 4. turnover

Question ID : **441009651967**
Option 1 ID : **4410092562137**
Option 2 ID : **4410092562139**
Option 3 ID : **4410092562140**
Option 4 ID : **4410092562138**

Q.9 **What is the name of the advisory body that is responsible for advising the Employee's State Insurance (ESI) Corporation on medical benefits under the Employees' State Insurance Act, 1948?**

Ans

✗ 1. Medical Benefit Team

✗ 2. Medical Advisory Team

✗ 3. Medical Advisory Unit

✓ 4. Medical Benefit Council

Question ID : **441009651963**
Option 1 ID : **4410092562121**
Option 2 ID : **4410092562124**
Option 3 ID : **4410092562122**
Option 4 ID : **4410092562123**

Q.10 **Any person aggrieved by an order of revocation of registration under the Buildings and Other Construction Workers (Regulation of Employment and Conditions of Service) Act, 1996, can prefer an appeal within:**

Ans
- ✗ 1. 90 days
- ✗ 2. 45 days
- ✓ 3. 30 days
- ✗ 4. 60 days

Question ID : **441009651947**
Option 1 ID : **4410092562060**
Option 2 ID : **4410092562058**
Option 3 ID : **4410092562057**
Option 4 ID : **4410092562059**

Q.11 **According to Section 81 of The Factories Act ,1948, an adult worker who has been allowed leave, shall before his leave begins, for how many days be paid the wages due for the period of the leave allowed?**

Ans
- ✗ 1. Five days
- ✗ 2. Six days
- ✗ 3. Seven days
- ✓ 4. Four days

Question ID : **441009651970**
Option 1 ID : **4410092562149**
Option 2 ID : **4410092562151**
Option 3 ID : **4410092562152**
Option 4 ID : **4410092562150**

Q.12 **What is the role of the Advisory Board constituted under the Minimum Wages Act, 1948?**

Ans
- ✗ 1. Inspecting workplaces
- ✗ 2. Increasing the minimum wages in certain cases
- ✓ 3. Advising on the revision of minimum wages
- ✗ 4. Enforcing the payment of minimum wages

Question ID : **441009651941**
Option 1 ID : **4410092562034**
Option 2 ID : **4410092562033**
Option 3 ID : **4410092562035**
Option 4 ID : **4410092562036**

QuickSarkari.com | WhatsApp Channel | Telegram: t.me/quick_sarkari

Q.13 **Under the Payment of Wages Act, 1936, what is the ordinary stipulated time frame for disposing of a claim after its registration by the authority?**

Ans
- ✗ 1. Six months
- ✓ 2. Three months
- ✗ 3. One month
- ✗ 4. Two months

Question ID : **441009651939**
Option 1 ID : **4410092562028**
Option 2 ID : **4410092562027**
Option 3 ID : **4410092562025**
Option 4 ID : **4410092562026**

Q.14 **Who is eligible for membership in the Family Pension Fund?**

Ans
- ✗ 1. Employees earning below ₹15,000 per month
- ✗ 2. All employees
- ✓ 3. Employees contributing to EPF
- ✗ 4. Employees with 10 years of service

Question ID : **441009652024**
Option 1 ID : **4410092562366**
Option 2 ID : **4410092562367**
Option 3 ID : **4410092562365**
Option 4 ID : **4410092562368**

Q.15 **What is the minimum number of workmen required to be employed so that the provisions of the Contract Labour Regulation and Abolition Act,1970, becomes applicable?**

Ans
- ✓ 1. Minimum 20
- ✗ 2. Minimum 10
- ✗ 3. Minimum 30
- ✗ 4. Minimum 40

Question ID : **441009651977**
Option 1 ID : **4410092562178**
Option 2 ID : **4410092562180**
Option 3 ID : **4410092562177**
Option 4 ID : **4410092562179**

QuickSarkari.com | WhatsApp Channel | Telegram: t.me/quick_sarkari

Q.16 **Which authority under the Industrial Disputes Act, 1947, is responsible for mediating disputes?**

Ans
- ✗ 1. Arbitration Panel
- ✗ 2. National Tribunal
- ✗ 3. Labour Court
- ✓ 4. Conciliation Officer

Question ID : **441009651933**
Option 1 ID : **4410092562004**
Option 2 ID : **4410092562003**
Option 3 ID : **4410092562001**
Option 4 ID : **4410092562002**

Q.17 **As per Section 5 of The Workmen's Compensation Act, 1923, a period of service shall, for the purposes of calculation of wages be deemed to be continuous if it has not been interrupted by a period of absence from work exceeding _____ days.**

Ans
- ✓ 1. 14
- ✗ 2. 15
- ✗ 3. 12
- ✗ 4. 10

Question ID : **441009651952**
Option 1 ID : **4410092562079**
Option 2 ID : **4410092562080**
Option 3 ID : **4410092562078**
Option 4 ID : **4410092562077**

Q.18 **What is the maximum amount of deduction for payments relating to cooperative societies under the Payment of Wages Act,1936?**

Ans
- ✗ 1. 35% of wages
- ✗ 2. 50% of wages
- ✗ 3. 60% of wages
- ✓ 4. 75% of wages

Question ID : **441009651981**
Option 1 ID : **4410092562195**
Option 2 ID : **4410092562194**
Option 3 ID : **4410092562196**
Option 4 ID : **4410092562193**

QuickSarkari.com | WhatsApp Channel | Telegram: t.me/quick_sarkari

Q.19 **Collective bargaining is a process by which a labour organisation, designated or selected by a majority of an employer's employees, specifically negotiates on behalf of employees with the employer over _____ and other terms and conditions of employment.**

Ans
✗ 1. fees
✗ 2. rules of borrowing
✗ 3. funds
✓ 4. wages

Question ID : **441009651998**
Option 1 ID : **4410092562263**
Option 2 ID : **4410092562262**
Option 3 ID : **4410092562264**
Option 4 ID : **4410092562261**

Q.20 **The Employees Provident Fund Scheme is applicable to establishments (other than a factory) employing:**

Ans
✗ 1. 25 or more employees
✗ 2. 10 or more employees
✓ 3. 20 or more employees
✗ 4. 15 or more employees

Question ID : **441009652027**
Option 1 ID : **4410092562380**
Option 2 ID : **4410092562377**
Option 3 ID : **4410092562379**
Option 4 ID : **4410092562378**

Section : **Discipline5**

Q.1 **What is the time frame within which eligible employees must exercise their option to join the Employees' Family Pension Scheme, 1971?**

Ans
✗ 1. Twelve months
✓ 2. Six months
✗ 3. There is no specific time frame
✗ 4. Three months

Question ID : **441009652023**
Option 1 ID : **4410092562363**
Option 2 ID : **4410092562362**
Option 3 ID : **4410092562364**
Option 4 ID : **4410092562361**

QuickSarkari.com | WhatsApp Channel | Telegram: t.me/quick_sarkari

Q.2 **The Payment of Bonus Act of 1965 requires employers to calculate direct taxes payable using the tax rates applicable for which year?**

Ans
✗ 1. Previous year
✓ 2. That year
✗ 3. Last two years
✗ 4. Next year

Question ID : **441009651966**
Option 1 ID : **4410092562134**
Option 2 ID : **4410092562133**
Option 3 ID : **4410092562135**
Option 4 ID : **4410092562136**

Q.3 **Protection of Gratuity is discussed under which Section of The Payment of Gratuity Act,1972?**

Ans
✓ 1. Section 13
✗ 2. Section 10
✗ 3. Section 11
✗ 4. Section 12

Question ID : **441009651973**
Option 1 ID : **4410092562161**
Option 2 ID : **4410092562164**
Option 3 ID : **4410092562163**
Option 4 ID : **4410092562162**

Q.4 **According to Section 19 of the Maternity Benefit Act 1961, 'An abstract of the provisions of this Act and the rules made thereunder in the language or languages of the locality shall be exhibited in a conspicuous place by the employer in every part of the establishment' in which _____ are employed.**

Ans
✗ 1. children
✓ 2. women
✗ 3. unskilled workers
✗ 4. men

Question ID : **441009651959**
Option 1 ID : **4410092562106**
Option 2 ID : **4410092562107**
Option 3 ID : **4410092562108**
Option 4 ID : **4410092562105**

QuickSarkari.com | WhatsApp Channel | Telegram: t.me/quick_sarkari

Q.5 **Who appoints the Central Advisory Board under the Minimum Wages Act, 1948?**

Ans
- ✗ 1. Member of Parliament
- ✗ 2. Central and State Government
- ✗ 3. State Government only
- ✓ 4. Central Government only

Question ID : **441009651980**
Option 1 ID : **4410092562192**
Option 2 ID : **4410092562190**
Option 3 ID : **4410092562189**
Option 4 ID : **4410092562191**

Q.6 **Section 5 of the Employment Exchanges (Compulsory Notification of Vacancies) Act, 1959, discusses which of the following?**

Ans
- ✗ 1. Penalties
- ✗ 2. Power to make rules
- ✓ 3. Employers to furnish information and returns in a prescribed form
- ✗ 4. Right of access to records or documents

Question ID : **441009651985**
Option 1 ID : **4410092562210**
Option 2 ID : **4410092562212**
Option 3 ID : **4410092562211**
Option 4 ID : **4410092562209**

Q.7 **Under the Maternity Benefits Act, 1961, a creche facility is mandatory for establishments employing ____ or more employees.**

Ans
- ✓ 1. 50
- ✗ 2. 20
- ✗ 3. 30
- ✗ 4. 10

Question ID : **441009652025**
Option 1 ID : **4410092562372**
Option 2 ID : **4410092562370**
Option 3 ID : **4410092562371**
Option 4 ID : **4410092562369**

Q.8 **Which Chapter of the Employees' State Insurance Act, 1948, provides the statutory provisions for 'Contributions'?**

Ans
- ✗ 1. Chapter V
- ✓ 2. Chapter IV
- ✗ 3. Chapter III
- ✗ 4. Chapter II

Question ID : **441009651962**
Option 1 ID : **4410092562120**
Option 2 ID : **4410092562119**
Option 3 ID : **4410092562118**
Option 4 ID : **4410092562117**

Q.9 **Which of the following international institutions define 'collective bargaining' as an institutional procedure of joint determination of the rules to govern the terms and conditions of employment of the workers concerned and the labour management relations itself?**

Ans
✗ 1. UDHR
✗ 2. WHO
✓ 3. ILO
✗ 4. CEDAW

Question ID : **441009651997**
Option 1 ID : **4410092562260**
Option 2 ID : **4410092562258**
Option 3 ID : **4410092562257**
Option 4 ID : **4410092562259**

Q.10 **Which of the following is NOT an essential condition that must be taken into account before laying off a worker?**

Ans
✓ 1. The workers should always be retrenched.
✗ 2. There has to be a failure of an employer.
✗ 3. The names of the laid-off workers should necessarily feature on the muster rolls of the establishment.
✗ 4. There has to be a refusal or inability of an employer.

Question ID : **441009651990**
Option 1 ID : **4410092562232**
Option 2 ID : **4410092562230**
Option 3 ID : **4410092562231**
Option 4 ID : **4410092562229**

Q.11 **As per the Contract Labour (Regulation and Abolition) Act, 1970, the Central Board shall consist of a Chairman to be appointed by the Central Government along with _____.**

Ans
✗ 1. the Commissioner
✓ 2. the Chief Labour Commissioner
✗ 3. the Labour Officer
✗ 4. the Labour Commissioner

Question ID : **441009651976**
Option 1 ID : **4410092562175**
Option 2 ID : **4410092562174**
Option 3 ID : **4410092562176**
Option 4 ID : **4410092562173**

QuickSarkari.com | WhatsApp Channel | Telegram: t.me/quick_sarkari

Q.12 **Which of the following sections specifically deals with Composition of Committees under the Minimum Wages Act,1948?**

Ans
- ✔ 1. Section 9
- ✘ 2. Section 2
- ✘ 3. Section 7
- ✘ 4. Section 3

Question ID : **441009651979**
Option 1 ID : **4410092562185**
Option 2 ID : **4410092562188**
Option 3 ID : **4410092562187**
Option 4 ID : **4410092562186**

Q.13 **Who appoints the Expert Committees under the Buildings and Other Construction Workers (Regulation of Employment and Conditions of Service) Act, 1996?**

Ans
- ✘ 1. Central Government
- ✘ 2. State Government
- ✘ 3. Labour Commissioner
- ✔ 4. Appropriate Government

Question ID : **441009651946**
Option 1 ID : **4410092562053**
Option 2 ID : **4410092562054**
Option 3 ID : **4410092562055**
Option 4 ID : **4410092562056**

Q.14 **According to Section 6 of the Employees' Family Pension Scheme, 1971, a member of the Family Pension Fund shall continue to be a member of the Family Pension Fund till he becomes entitled to withdraw the benefits to which he is entitled under this Scheme or dies during the period of reckonable service, _____.**

Ans
- ✔ 1. whichever is the earliest
- ✘ 2. or before 45 years of age
- ✘ 3. whichever is later
- ✘ 4. or before 50 years of age

Question ID : **441009651957**
Option 1 ID : **4410092562098**
Option 2 ID : **4410092562100**
Option 3 ID : **4410092562097**
Option 4 ID : **4410092562099**

Q.15 What is the minimum age required for employment in any factory or a mine, or to get engaged in any other hazardous activity as per the Constitution of India?

Ans
- ✗ 1. 13 years
- ✗ 2. 12 years
- ✗ 3. 15 years
- ✓ 4. 14 years

Question ID : **441009651983**
Option 1 ID : **4410092562201**
Option 2 ID : **4410092562202**
Option 3 ID : **4410092562204**
Option 4 ID : **4410092562203**

Q.16 What is the legal status of a trade union upon registration under the Trade Union Act, 1926?

Ans
- ✗ 1. It is recognised as a political body.
- ✗ 2. It becomes a partnership firm.
- ✗ 3. It gains immunity from all laws.
- ✓ 4. It becomes a corporate body.

Question ID : **441009652021**
Option 1 ID : **4410092562354**
Option 2 ID : **4410092562353**
Option 3 ID : **4410092562356**
Option 4 ID : **4410092562355**

Q.17 As per the Maternity Benefit Act, 1961, what is the maximum period for which any woman shall be entitled to get maternity benefit?

Ans
- ✗ 1. 30 weeks
- ✓ 2. 26 weeks
- ✗ 3. 10 weeks
- ✗ 4. 12 weeks

Question ID : **441009651961**
Option 1 ID : **4410092562114**
Option 2 ID : **4410092562113**
Option 3 ID : **4410092562116**
Option 4 ID : **4410092562115**

QuickSarkari.com | WhatsApp Channel | Telegram: t.me/quick_sarkari

Q.18 **What is the maximum number of hours a motor transport worker can work in a day, under the Motor Transport Workers' Act, 1961?**

Ans

✗ 1. 12 hours

✗ 2. 10 hours

✓ 3. 8 hours

✗ 4. 9 hours

Question ID : **441009652029**
Option 1 ID : **4410092562388**
Option 2 ID : **4410092562387**
Option 3 ID : **4410092562385**
Option 4 ID : **4410092562386**

Q.19 **Identify the type of vacancy in which the Employment Exchanges (Compulsory Notification of Vacancies) Act, 1959, applies.**

Ans

✗ 1. In any employment in domestic service

✗ 2. In any employment connected with the staff of Parliament

✓ 3. In any employment to do skilled office work

✗ 4. In any employment, the total duration of which, is less than three months

Question ID : **441009651986**
Option 1 ID : **4410092562213**
Option 2 ID : **4410092562215**
Option 3 ID : **4410092562214**
Option 4 ID : **4410092562216**

Q.20 **Which provision of the Maternity Benefit Act ,1961, deals with 'Notice of Claim for Maternity Benefit'?**

Ans

✗ 1. Section 5

✓ 2. Section 6

✗ 3. Section 4

✗ 4. Section 7

Question ID : **441009651960**
Option 1 ID : **4410092562109**
Option 2 ID : **4410092562110**
Option 3 ID : **4410092562111**
Option 4 ID : **4410092562112**

QuickSarkari.com | WhatsApp Channel | Telegram: t.me/quick_sarkari

Quick Sarkari

Thank you for studying with QuickSarkari!

Get the latest Sarkari Naukri notifications, admit cards, results, answer keys and free previous-year papers first - follow us on WhatsApp and Telegram.

Visit www.quicksarkari.com

Join our WhatsApp Channel

https://whatsapp.com/channel/0029VaxxbrREquiPoXTWM229

Join our Telegram Channel

https://t.me/quick_sarkari

Share this PDF with your friends preparing for DSSSB exams.