Quick Sarkari

DSSSB PREVIOUS YEAR PAPER WITH ANSWER KEY

DSSSB Nurse Grade A

4 July 2025 · Shift 1

डीएसएसएसबी नर्स ग्रेड A – 4 जुलाई 2025, शिफ्ट 1 का प्रश्न पत्र, उत्तर कुंजी सहित

200	120 min	1 / −0.25	EN + HI
Questions / प्रश्न	Duration / समय	Marks per Q / अंक	Language / भाषा

Sections: General intelligence and Reasoning Ability, General Awareness, Arithmetical and Numerical Ability, Test of English Language and Comprehension, Test of Hindi Language and Comprehension, Nurse Grade A

INSIDE THIS PDF / इस PDF में

Question Paper in English + Hindi with Answer Key (correct option marked in green) + answer table Page 2–43
प्रश्न पत्र अंग्रेज़ी + हिंदी में, उत्तर कुंजी सहित (सही विकल्प हरे रंग में) + उत्तर तालिका

Official DSSSB Response Sheet with Answer Key (correct option ticked in green) Page 44–99
आधिकारिक DSSSB रिस्पॉन्स शीट, उत्तर कुंजी सहित (सही विकल्प हरे टिक से)

HOW TO USE THIS PAPER / इस पेपर का उपयोग कैसे करें

1. Attempt the paper first as a timed online mock test (link below).
   पहले नीचे दिए लिंक से इसे टाइमर के साथ ऑनलाइन मॉक टेस्ट के रूप में हल करें।
2. Check your score, section-wise analysis and solutions online.
   ऑनलाइन अपना स्कोर, खंड-वार विश्लेषण और हल देखें।
3. Use this PDF for revision. Correct answers are shown in green.
   दोहराने के लिए इस PDF का उपयोग करें। सही उत्तर हरे रंग में दिए गए हैं।

Attempt this paper as a FREE online mock test
इस पेपर को फ्री ऑनलाइन मॉक टेस्ट के रूप में हल करें – टाइमर, स्कोर और हल के साथ
https://quicksarkari.com/dsssb-nurse-grade-a-04-july-2025-shift-1-mock-test/

All DSSSB Nurse Grade A papers and mock tests: **quicksarkari.com/dsssb-mock-test/#nurse-grade-a**

Join WhatsApp Channel | Join Telegram Channel

DSSSB Nurse Grade A – Question Paper (English + Hindi)

DSSSB नर्स ग्रेड A – प्रश्न पत्र (अंग्रेज़ी + हिंदी)

Exam held on 4 July 2025, Shift 1 · 200 questions · correct answers marked ✔ in green
परीक्षा तिथि 4 जुलाई 2025, शिफ्ट 1 · 200 प्रश्न · सही उत्तर हरे रंग में ✔ से चिह्नित

> The official paper for this shift was in English. The Hindi version of each question is a translation prepared by QuickSarkari; the language-section questions are shown as asked.
> इस शिफ्ट का आधिकारिक प्रश्न पत्र अंग्रेज़ी में था। प्रत्येक प्रश्न का हिंदी संस्करण QuickSarkari द्वारा तैयार किया गया अनुवाद है; भाषा खंड के प्रश्न मूल रूप में दिए गए हैं।

General intelligence and Reasoning Ability

Q.1 Read the given statements and conclusions carefully. Assuming that the information given in the statements is true, even if it appears to be at variance with commonly known facts, decide which of the given conclusion(s) logically follow(s) from the statements.
Statements:
All apples are bananas.
No banana is a pineapple.
No banana is a litchi.
Conclusions:
(I) No apple is a pineapple.
(II) Some litchis are pineapples.

दिए गए कथनों और निष्कर्षों को ध्यानपूर्वक पढ़िए। कथनों में दी गई जानकारी को सत्य मानते हुए, भले ही वह सामान्य रूप से ज्ञात तथ्यों से भिन्न प्रतीत होती हो, निर्णय लीजिए कि दिए गए निष्कर्षों में से कौन-सा/कौन-से निष्कर्ष कथनों का तार्किक रूप से अनुसरण करता है/करते हैं।
कथन:
सभी सेब, केले हैं।
कोई केला, अनानास नहीं है।
कोई केला, लीची नहीं है।
निष्कर्ष:
(I) कोई सेब, अनानास नहीं है।
(II) कुछ लीची, अनानास हैं।

(1) Both conclusions (I) and (II) follow. / निष्कर्ष (I) और (II) दोनों अनुसरण करते हैं।
(2) Only conclusion (I) follows. / केवल निष्कर्ष (I) अनुसरण करता है। ✔
(3) Only conclusion (II) follows. / केवल निष्कर्ष (II) अनुसरण करता है।
(4) Neither conclusion (I) nor (II) follows. / न तो निष्कर्ष (I) और न ही (II) अनुसरण करता है।

Q.2 J, K, L, X, Y, and Z live on six different floors of the same building. The lowermost floor in the building is numbered 1, the floor above it, number 2 and so on, till the topmost floor is numbered 6. Only three people live between Y and X, where Y lives below X. J lives on an odd numbered floor and immediately above Y. Z lives on one of the floors below K and on one of the floors above L. Who lives on floor numbered 5?

J, K, L, X, Y और Z एक ही इमारत की छह अलग-अलग मंजिलों पर रहते हैं। इमारत की सबसे निचली मंजिल की संख्या 1 है, उसके ऊपर वाली मंजिल की संख्या 2 है और इसी प्रकार आगे, सबसे ऊपरी मंजिल की संख्या 6 है। Y और X के बीच केवल तीन व्यक्ति रहते हैं, जहाँ Y, X से नीचे रहता है। J एक विषम संख्या वाली मंजिल पर और Y के ठीक ऊपर रहता है। Z, K से नीचे की किसी एक मंजिल पर और L से ऊपर की किसी एक मंजिल पर रहता है। मंजिल संख्या 5 पर कौन रहता है?

(1) J
(2) K ✔
(3) L
(4) Y

Q.3 All 16 people are standing in a row facing north. Kapil is 7th from the left end while Mohan is 4th from the right end. How many people are there between Kapil and Mohan?

सभी 16 व्यक्ति उत्तर की ओर मुख करके एक पंक्ति में खड़े हैं। कपिल बाएँ छोर से 7वें स्थान पर है जबकि मोहन दाएँ छोर से 4थे स्थान पर है। कपिल और मोहन के बीच कितने व्यक्ति हैं?

(1) 5 ✔

(2) 3

(3) 2

(4) 4

Q.4 Based on the English alphabetical order, three of the following four letter-clusters are alike in a certain way and thus form a group. Which letter-cluster DOES NOT belong to that group?

(Note: The odd one out is not based on the number of consonants/vowels or their position in the letter-cluster.)

अंग्रेजी वर्णमाला क्रम के आधार पर, निम्नलिखित चार अक्षर-समूहों में से तीन किसी निश्चित प्रकार से एकसमान हैं और इस प्रकार एक समूह बनाते हैं। कौन-सा अक्षर-समूह उस समूह से संबंधित नहीं है?

(नोट: असंगत अक्षर-समूह, उस अक्षर-समूह में व्यंजनों/स्वरों की संख्या या उनके स्थान पर आधारित नहीं है।)

(1) VRNJ

(2) IEAV ✔

(3) BXTP

(4) MIEA

Q.5 In a certain code language, 'DOME' is coded as '3518' and 'MADE' is coded as '6538'. What is the code for 'A' in the given code language?

एक निश्चित कूट भाषा में, 'DOME' को '3518' के रूप में कूटबद्ध किया जाता है और 'MADE' को '6538' के रूप में कूटबद्ध किया जाता है। दी गई कूट भाषा में 'A' के लिए कूट क्या है?

(1) 6 ✔

(2) 5

(3) 1

(4) 3

Q.6 Select the triad that follows the same pattern as that followed by the two triads given below. Both triads follow the same pattern.

(NOTE: Operations should be performed on the whole numbers, without breaking down the numbers into their constituent digits. E.g. 13 – Operations on 13 such as adding/subtracting/multiplying to 13 can be performed. Breaking down 13 into 1 and 3 and then performing mathematical operations on 1 and 3 is not allowed.)

15 - 3 - 45 2 - 6 - 12

उस त्रिक का चयन कीजिए जो उसी पैटर्न का अनुसरण करता है जिसका अनुसरण नीचे दिए गए दो त्रिक करते हैं। दोनों त्रिक एक ही पैटर्न का अनुसरण करते हैं।

(नोट: संक्रियाएँ संख्याओं को उनके घटक अंकों में विभाजित किए बिना, पूर्ण संख्याओं पर की जानी चाहिए। उदाहरण के लिए, 13 – 13 पर संक्रियाएँ जैसे 13 में जोड़ना/घटाना/गुणा करना आदि किया जा सकता है। 13 को 1 और 3 में विभाजित करना और फिर 1 और 3 पर गणितीय संक्रियाएँ करना वर्जित है।)

15 - 3 - 45 2 - 6 - 12

(1) 6 - 3 - 18 ✔

(2) 13 - 2 - 28

(3) 12 - 4 - 52

(4) 5 - 9 - 54

Q.7 STRING is related to ZAYPUN in a certain way based on the English alphabetical order. In the same way, MUG is related to TBN. To which of the given options is NUTMEG related, following the same logic?

अंग्रेजी वर्णमाला क्रम के आधार पर, STRING एक निश्चित प्रकार से ZAYPUN से संबंधित है। उसी प्रकार, MUG, TBN से संबंधित है। समान तर्क का अनुसरण करते हुए, NUTMEG दिए गए विकल्पों में से किससे संबंधित है?

(1) VBATLN

(2) UYATLN

(3) UBATLM

(4) UBATLN ✔

Q.8 Refer to the following number and symbol series and answer the question that follows. Counting to be done from left to right only.

(Left) # @ 8 $ £ 5 1 * 7 Ω 9 & 3 % 4 2 & 6 (Right)

How many such numbers are there each of which is immediately preceded by a number and also immediately followed by a symbol?

निम्नलिखित संख्या और प्रतीक श्रृंखला को देखिए और उसके बाद आने वाले प्रश्न का उत्तर दीजिए। गिनती केवल बाएँ से दाएँ की जानी है।

(बाएँ) # @ 8 $ £ 5 1 * 7 Ω 9 & 3 % 4 2 & 6 (दाएँ)

ऐसी कितनी संख्याएँ हैं जिनमें से प्रत्येक के ठीक पहले एक संख्या है और ठीक बाद एक प्रतीक भी है?

(1) 3

(2) 1

(3) 4

(4) 2 ✔

Q.9 If + means −, − means ×, × means ÷, ÷ means +, then what will come in place of the question mark (?) in the following equation?

15 ÷ 9 × 3 + 4 − 3 = ?

यदि + का अर्थ −, − का अर्थ ×, × का अर्थ ÷, ÷ का अर्थ + है, तो निम्नलिखित समीकरण में प्रश्न चिह्न (?) के स्थान पर क्या आएगा?

15 ÷ 9 × 3 + 4 − 3 = ?

(1) 6 ✔

(2) 30

(3) 0

(4) 17

Q.10 What should come in place of the question mark (?) in the given series?

7 14 28 49 ?

दी गई श्रृंखला में प्रश्न चिह्न (?) के स्थान पर क्या आना चाहिए?

7 14 28 49 ?

(1) 77 ✔

(2) 81

(3) 98

(4) 62

QuickSarkari.com | WhatsApp Channel | Telegram: t.me/quick_sarkari

Q.11 What should come in place of the question mark (?) in the given series?
6 8 20 42 ?
दी गई श्रृंखला में प्रश्न चिह्न (?) के स्थान पर क्या आना चाहिए?
6 8 20 42 ?

(1) 94
(2) 86
(3) 74 ✔
(4) 62

Q.12 A is the father of B and C. D is the mother of C. E is the brother of D. F is the son of E. How is F related to A?
A, B और C का पिता है। D, C की माता है। E, D का भाई है। F, E का पुत्र है। F का A से क्या संबंध है?

(1) Father / पिता
(2) Wife's brother's son / पत्नी के भाई का पुत्र ✔
(3) Husband / पति
(4) Wife's brother / पत्नी का भाई

Q.13 If 'A' stands for '÷', 'B' stands for '×', 'C' stands for '+' and 'D' stands for '–', then what will come in place of the question mark (?) in the following equation?
75 B 41 D 306 A 2 C 57 = ?
यदि 'A' का अर्थ '÷', 'B' का अर्थ '×', 'C' का अर्थ '+' और 'D' का अर्थ '–' है, तो निम्नलिखित समीकरण में प्रश्न चिह्न (?) के स्थान पर क्या आएगा?
75 B 41 D 306 A 2 C 57 = ?

(1) 2866
(2) 2552
(3) 2369
(4) 2979 ✔

Q.14 Refer to the following number and symbol series and answer the question. Counting to be done from left to right only. (All numbers are single-digit numbers only.)
(Left) 7 Ω 9 & 3 % 4 1 * & 6 2 # @ 8 $ £ 5 (Right)
How many such numbers are there each of which is immediately preceded by a symbol and also immediately followed by a number?
निम्नलिखित संख्या और प्रतीक श्रृंखला को देखिए और प्रश्न का उत्तर दीजिए। गिनती केवल बाएँ से दाएँ की जानी है। (सभी संख्याएँ केवल एक-अंकीय संख्याएँ हैं।)
(बाएँ) 7 Ω 9 & 3 % 4 1 * & 6 2 # @ 8 $ £ 5 (दाएँ)
ऐसी कितनी संख्याएँ हैं जिनमें से प्रत्येक के ठीक पहले एक प्रतीक है और ठीक बाद एक संख्या भी है?

(1) Two / दो ✔
(2) One / एक
(3) Four / चार
(4) Three / तीन

Q.15 If the water source is placed along A-B, as shown in the given figure, which of the given options will be the water reflection of the given figure?

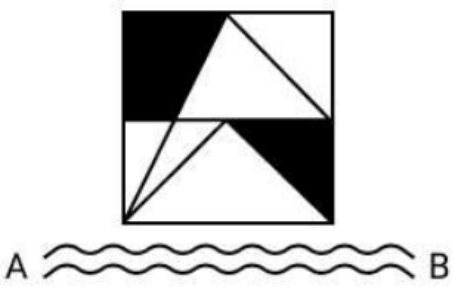

यदि दी गई आकृति में दर्शाए अनुसार जल स्रोत को A-B के अनुदिश रखा जाए, तो दिए गए विकल्पों में से कौन-सा विकल्प दी गई आकृति का जल प्रतिबिंब होगा?

(1)  ✔

(2) 

(3) 

(4) 

Q.16 AF 80 is related to CI 40 in a certain way. In the same way, DG 44 is related to FJ 22. To which of the given options is PS 64 related, following the same logic?

AF 80 एक निश्चित प्रकार से CI 40 से संबंधित है। उसी प्रकार, DG 44, FJ 22 से संबंधित है। समान तर्क का अनुसरण करते हुए, PS 64 दिए गए विकल्पों में से किससे संबंधित है?

(1) SU 34

(2) **RV 32** ✔

(3) RW 36

(4) SW 32

QuickSarkari.com | WhatsApp Channel | Telegram: t.me/quick_sarkari

Q.17 Based on the English alphabetical order, three of the following four letter-cluster pairs are alike in a certain way and thus form a group. Which letter-cluster pair DOES NOT belong to that group?
(Note: The odd one out is not based on the number of consonants/vowels or their position in the letter-cluster.)
अंग्रेजी वर्णमाला क्रम के आधार पर, निम्नलिखित चार अक्षर-समूह युग्मों में से तीन किसी निश्चित प्रकार से एकसमान हैं और इस प्रकार एक समूह बनाते हैं। कौन-सा अक्षर-समूह युग्म उस समूह से संबंधित नहीं है?
(नोट: असंगत अक्षर-समूह युग्म, उस अक्षर-समूह में व्यंजनों/स्वरों की संख्या या उनके स्थान पर आधारित नहीं है।)

(1) KI-HC ✔
(2) GQ-EK
(3) RB-PV
(4) DN-BH

Q.18 Three of the following four triads are alike in a certain way and thus form a group. Which is the one that DOES NOT belong to that group?
(NOTE: Operations should be performed on the whole numbers, without breaking down the numbers into their constituent digits. E.g. 13 – Operations on 13 such as adding / subtracting /multiplying to 13 can be performed. Breaking down 13 into 1 and 3 and then performing mathematical operations on 1 and 3 is not allowed.)
65 - 30 - 35 40 - 6 - 34
निम्नलिखित चार त्रिकों में से तीन किसी निश्चित प्रकार से एकसमान हैं और इस प्रकार एक समूह बनाते हैं। वह कौन-सा त्रिक है जो उस समूह से संबंधित नहीं है?
(नोट: संक्रियाएँ संख्याओं को उनके घटक अंकों में विभाजित किए बिना, पूर्ण संख्याओं पर की जानी चाहिए। उदाहरण के लिए, 13 – 13 पर संक्रियाएँ जैसे 13 में जोड़ना/घटाना/गुणा करना आदि किया जा सकता है। 13 को 1 और 3 में विभाजित करना और फिर 1 और 3 पर गणितीय संक्रियाएँ करना वर्जित है।)
65 - 30 - 35 40 - 6 - 34

(1) 48 - 20 - 28 ✔
(2) 56 - 3 - 52
(3) 62 - 42 - 30
(4) 32 - 20 - 14

Q.19 A, B, C, D, E, F, G and H are sitting around a circular table, facing the centre. A sits 2nd to the right of D. B sits 2nd to the left of C. F is an immediate neighbour of B. E is an immediate neighbour of A. C sits to the immediate right of G. H's immediate neighbours are C and D. What is the position of F with respect to E?
A, B, C, D, E, F, G और H एक वृत्ताकार मेज के चारों ओर केंद्र की ओर मुख करके बैठे हैं। A, D के दाईं ओर दूसरे स्थान पर बैठा है। B, C के बाईं ओर दूसरे स्थान पर बैठा है। F, B का निकटतम पड़ोसी है। E, A का निकटतम पड़ोसी है। C, G के ठीक दाईं ओर बैठा है। H के निकटतम पड़ोसी C और D हैं। E के सापेक्ष F का स्थान क्या है?

(1) 3rd to the left / बाईं ओर तीसरा
(2) 3rd to the right / दाईं ओर तीसरा
(3) 2nd to the left / बाईं ओर दूसरा
(4) 2nd to the right / दाईं ओर दूसरा ✔

Q.20 In a certain code language, 'MELT' is coded as '2618' and 'LATE' is coded as '6258'. What is the code for 'M' in the given code language?

एक निश्चित कूट भाषा में, 'MELT' को '2618' के रूप में कूटबद्ध किया जाता है और 'LATE' को '6258' के रूप में कूटबद्ध किया जाता है। दी गई कूट भाषा में 'M' के लिए कूट क्या है?

(1) 5

(2) 1 ✔

(3) 2

(4) 8

General Awareness

Q.21 The Koothandavar festival, celebrated annually in Koovagam, Tamil Nadu, is known for which of the following?

तमिलनाडु के कूवागम में प्रतिवर्ष मनाया जाने वाला कूथंडावर उत्सव निम्नलिखित में से किसके लिए जाना जाता है?

(1) Celebration of martial arts traditions / मार्शल आर्ट परंपराओं का उत्सव

(2) Recognition and celebration of transgender identity / ट्रांसजेंडर पहचान की मान्यता और उसका उत्सव ✔

(3) Worship of harvest deities by tribal communities / जनजातीय समुदायों द्वारा फसल देवताओं की पूजा

(4) Honouring Tamil poets and scholars / तमिल कवियों और विद्वानों का सम्मान

Q.22 Which of the following animals belongs to the class Amphibia?

निम्नलिखित में से कौन-सा जंतु उभयचर (Amphibia) वर्ग से संबंधित है?

(1) Toad / टोड ✔

(2) Sea horse / समुद्री घोड़ा

(3) Snake / साँप

(4) Fish / मछली

Q.23 Which of the following countries promoted the concept of 'One Sun, One World, One Grid' at the 26th session of the Conference of the Parties (COP26) to the United Nations Framework Convention on Climate Change (UNFCCC)?

निम्नलिखित में से किस देश ने संयुक्त राष्ट्र जलवायु परिवर्तन फ्रेमवर्क कन्वेंशन (UNFCCC) के पक्षकारों के सम्मेलन (COP26) के 26वें सत्र में 'वन सन, वन वर्ल्ड, वन ग्रिड' की अवधारणा को बढ़ावा दिया?

(1) United States of America / संयुक्त राज्य अमेरिका

(2) India / भारत ✔

(3) United Arab Emirates / संयुक्त अरब अमीरात

(4) Federal Republic of Germany / जर्मनी संघीय गणराज्य

Q.24 Which of the following festivals is celebrated in the Hindu month of Kartik?

निम्नलिखित में से कौन-सा त्योहार हिंदू माह कार्तिक में मनाया जाता है?

(1) Holi / होली

(2) Raksha Bandhan / रक्षा बंधन

(3) Bhai Dhuj / भाई दूज

(4) Dev Diwali / देव दीपावली ✔

Q.25 Robert Bruce Foote found the first group of implements at which place in India in 1863?
रॉबर्ट ब्रूस फूट ने 1863 में भारत में किस स्थान पर औज़ारों का पहला समूह खोजा था?

(1) Kalpi / कालपी
(2) Bhimbetka / भीमबेटका
(3) Kurnool / कुर्नूल
(4) **Pallavaram / पल्लावरम ✔**

Q.26 Which of the following statements regarding the High Courts in India is/are correct?
I. A High Court hears appeals from the lower courts.
II. A High Court can issue Writs for restoring Fundamental Rights.
III. A High Court deals with the cases within the Jurisdiction of the state.
भारत में उच्च न्यायालयों के संबंध में निम्नलिखित में से कौन-सा/से कथन सही है/हैं?
I. उच्च न्यायालय निचली अदालतों से आने वाली अपीलों की सुनवाई करता है।
II. उच्च न्यायालय मौलिक अधिकारों की बहाली के लिए रिट जारी कर सकता है।
III. उच्च न्यायालय राज्य के क्षेत्राधिकार के भीतर के मामलों से संबंधित कार्य करता है।

(1) I and II only / केवल I और II
(2) I and III only / केवल I और III
(3) III only / केवल III
(4) **All I, II, and III / I, II और III सभी ✔**

Q.27 Which of the following is FALSE about the Peninsular Plateau?
प्रायद्वीपीय पठार के बारे में निम्नलिखित में से कौन-सा कथन असत्य है?

(1) **The northwestern part of the plateau is characterised by smooth, level terrain without any major landforms. / पठार का उत्तर-पश्चिमी भाग बिना किसी प्रमुख स्थलरूप वाले चिकने, समतल भूभाग की विशेषता रखता है। ✔**
(2) The Bhima fault is associated with significant seismic activities in the region. / भीमा भ्रंश इस क्षेत्र में महत्वपूर्ण भूकंपीय गतिविधियों से संबंधित है।
(3) The Peninsular Plateau has undergone recurrent upliftment and submergence, with associated crustal faulting and fractures. / प्रायद्वीपीय पठार में संबद्ध भूपर्पटीय भ्रंशन और विभंगों के साथ बार-बार उत्थान और निमज्जन हुआ है।
(4) The Chambal, Bhind and Morena are part of the Peninsular Plateau, renowned for their rugged topography, including well-known ravines. / चंबल, भिंड और मुरैना प्रायद्वीपीय पठार का हिस्सा हैं, जो प्रसिद्ध बीहड़ों सहित अपनी ऊबड़-खाबड़ स्थलाकृति के लिए प्रसिद्ध हैं।

Q.28 In the context of limitations on the authority of the Indian Parliament, which one of the following does NOT directly restrict its sovereignty?
भारतीय संसद के अधिकार पर सीमाओं के संदर्भ में, निम्नलिखित में से कौन-सा एक इसकी संप्रभुता को प्रत्यक्ष रूप से सीमित नहीं करता है?

(1) Written Constitution / लिखित संविधान
(2) Federal system of government / सरकार की संघीय प्रणाली
(3) System of Judicial Review / न्यायिक पुनरावलोकन की प्रणाली
(4) **Directive Principles of State Policy / राज्य के नीति निदेशक तत्व ✔**

Q.29 As per the provisions given in the Indian Constitution, the people of India can claim _____.
भारतीय संविधान में दिए गए प्रावधानों के अनुसार, भारत के लोग _____ का दावा कर सकते हैं।

(1) only economic justice / केवल आर्थिक न्याय
(2) **social, economic and political justice / सामाजिक, आर्थिक और राजनीतिक न्याय ✔**
(3) only political justice / केवल राजनीतिक न्याय
(4) only social justice / केवल सामाजिक न्याय

Q.30 What impact have rural employment schemes like MGNREGA had on rural labour migration to urban areas?

मनरेगा (MGNREGA) जैसी ग्रामीण रोजगार योजनाओं का ग्रामीण श्रमिकों के शहरी क्षेत्रों में प्रवासन पर क्या प्रभाव पड़ा है?

(1) There has been a significant reduction in distress-driven migration. / संकट-जनित प्रवासन में उल्लेखनीय कमी आई है। ✔

(2) These schemes have completely stopped rural-urban migration. / इन योजनाओं ने ग्रामीण-शहरी प्रवासन को पूरी तरह से रोक दिया है।

(3) They have increased migration due to lack of proper implementation. / उचित कार्यान्वयन के अभाव के कारण इन्होंने प्रवासन को बढ़ा दिया है।

(4) Rural employment schemes have no impact on migration patterns. / ग्रामीण रोजगार योजनाओं का प्रवासन के पैटर्न पर कोई प्रभाव नहीं पड़ता है।

Q.31 Cutin, which forms the waterproof layer outside the cell wall, is secreted by the:

क्यूटिन, जो कोशिका भित्ति के बाहर जलरोधी परत बनाता है, किसके द्वारा स्रावित होता है?

(1) epidermal cells / बाह्यत्वचीय (एपिडर्मल) कोशिकाएँ ✔

(2) phloem cells / फ्लोएम कोशिकाएँ

(3) meristematic cells / विभज्योतकी कोशिकाएँ

(4) xylem cells / जाइलम कोशिकाएँ

Q.32 Which of the following is an INCORRECT statement about the Great Indian Desert?

महान भारतीय मरुस्थल के बारे में निम्नलिखित में से कौन-सा कथन गलत है?

(1) It is characterised by flat, smooth terrain with no dunes or sand formations. / इसकी विशेषता बिना टिब्बों या रेत संरचनाओं वाला समतल, चिकना भूभाग है। ✔

(2) The Great Indian Desert has low vegetation cover due to the dry conditions. / शुष्क परिस्थितियों के कारण महान भारतीय मरुस्थल में वनस्पति आवरण कम है।

(3) The Great Indian Desert lies to the northwest of the Aravalli hills. / महान भारतीय मरुस्थल अरावली पहाड़ियों के उत्तर-पश्चिम में स्थित है।

(4) The region receives less than 150 mm of rainfall annually and has an arid climate. / इस क्षेत्र में प्रतिवर्ष 150 mm से कम वर्षा होती है और इसकी जलवायु शुष्क है।

Q.33 Who among the following founded 'Mohammedan Literary Society' at Calcutta in 1863?

निम्नलिखित में से किसने 1863 में कलकत्ता में 'मोहम्मडन लिटरेरी सोसाइटी' की स्थापना की थी?

(1) Sayyid Ahmad Khan / सैयद अहमद खान

(2) Nawab Muhsinul Mulk / नवाब मोहसिन-उल-मुल्क

(3) Nawab Abdul Latif / नवाब अब्दुल लतीफ ✔

(4) Maulvi Khudabakhsh / मौलवी खुदाबख्श

Q.34 When was the Sindhi language added in the Eighth Schedule of the Constitution of India?

सिंधी भाषा को भारत के संविधान की आठवीं अनुसूची में कब जोड़ा गया था?

(1) 1981

(2) 1960

(3) 1998

(4) 1967 ✔

Q.35 'Money is what money does' refers to:

'मुद्रा वह है जो मुद्रा का कार्य करती है' से तात्पर्य है:

(1) the functions of money / मुद्रा के कार्य ✔

(2) the properties of money / मुद्रा के गुण

(3) the approaches to money / मुद्रा के दृष्टिकोण

(4) the form of money / मुद्रा का रूप

Q.36 Rudradaman was a famous ruler of which dynasty that ruled in the middle of the second century AD over almost the whole of western India?

रुद्रदामन किस राजवंश का प्रसिद्ध शासक था, जिसने दूसरी शताब्दी ईस्वी के मध्य में लगभग संपूर्ण पश्चिमी भारत पर शासन किया था?

(1) Parthians / पार्थियन

(2) Kanva / कण्व

(3) Sunga / शुंग

(4) Shaka / शक ✔

Q.37 What is the name of India's first private satellite constellation launched by Pixxel, a space tech company?

एक अंतरिक्ष तकनीक कंपनी, पिक्सल (Pixxel) द्वारा प्रक्षेपित भारत के पहले निजी उपग्रह समूह का नाम क्या है?

(1) SpaDex / स्पेडेक्स (SpaDex)

(2) Jugnu / जुगनू

(3) Planetgaze / प्लैनेटगेज़ (Planetgaze)

(4) Firefly / फायरफ्लाई (Firefly) ✔

Q.38 What was India's rank among the world's most polluted countries for the year 2024, in terms of Air Quality Index (AQI) and PM2.5?

वायु गुणवत्ता सूचकांक (AQI) और PM2.5 के संदर्भ में, वर्ष 2024 के लिए विश्व के सबसे प्रदूषित देशों में भारत का स्थान क्या था?

(1) 4th / 4वाँ

(2) 5th / 5वाँ ✔

(3) 2nd / 2रा

(4) 3rd / 3रा

Q.39 Which of the following cities hosted the 39th National Junior Athletics Championships from 7-11 December 2024?

निम्नलिखित में से किस शहर ने 7-11 दिसंबर 2024 तक 39वीं राष्ट्रीय जूनियर एथलेटिक्स चैंपियनशिप की मेजबानी की?

(1) Bhubaneswar / भुवनेश्वर ✔

(2) Ajmer / अजमेर

(3) Thrissur / त्रिशूर

(4) Pathankot / पठानकोट

Q.40 Which of the following is NOT included in non-economic production?

निम्नलिखित में से कौन-सा गैर-आर्थिक उत्पादन में शामिल नहीं है?

(1) Services rendered to self / स्वयं को प्रदान की गई सेवाएँ

(2) Services provided by public institutions / सार्वजनिक संस्थानों द्वारा प्रदान की गई सेवाएँ ✔

(3) Services provided by the neighbours to each other / पड़ोसियों द्वारा एक-दूसरे को प्रदान की गई सेवाएँ

(4) Services provided by the family members to the family members / परिवार के सदस्यों द्वारा परिवार के सदस्यों को प्रदान की गई सेवाएँ

Arithmetical and Numerical Ability

Q.41 Admissions in the school increased by 30% this year. There are now 208 students in the school. How many students were there last year?

इस वर्ष विद्यालय में प्रवेश में 30% की वृद्धि हुई। अब विद्यालय में 208 छात्र हैं। पिछले वर्ष विद्यालय में कितने छात्र थे?

(1) 145
(2) 150
(3) 175
(4) 160 ✔

Q.42 Find the simplified value of (2^{5} × 5^{3} × 2^{4})/(2^{1} × 5^{3} × 2^{3})

$(2^5 \times 5^3 \times 2^4)/(2^1 \times 5^3 \times 2^3)$ का सरलीकृत मान ज्ञात कीजिए।

(1) 41
(2) 32 ✔
(3) 35
(4) 40

Q.43 Anita borrows ₹52,000 and agrees to repay it after 3 years with simple interest at an annual rate of 4%. Calculate the total interest paid over the period.

अनीता ₹52,000 उधार लेती है और 4% की वार्षिक दर से साधारण ब्याज के साथ इसे 3 वर्ष बाद चुकाने पर सहमत होती है। इस अवधि में भुगतान किए गए कुल ब्याज की गणना कीजिए।

(1) ₹6,080
(2) ₹6,480
(3) ₹6,240 ✔
(4) ₹6,770

Q.44 ₹81,700 was divided among A, B and C, such that 6 times of A = 9 times of B = 5 times of C. Find the share of A.

₹81,700 को A, B और C में इस प्रकार विभाजित किया गया कि A का 6 गुना = B का 9 गुना = C का 5 गुना है। A का हिस्सा ज्ञात कीजिए।

(1) ₹28,500 ✔
(2) ₹28,692
(3) ₹28,374
(4) ₹28,386

Q.45 A man sells a mobile phone for ₹600 and loses some money. If he had sold it for ₹1140, his gain would have been twice the former loss. The cost price (in ₹) of the mobile phone is:

एक व्यक्ति एक मोबाइल फोन ₹600 में बेचता है और उसे कुछ हानि होती है। यदि वह इसे ₹1140 में बेचता, तो उसका लाभ पिछली हानि का दोगुना होता। मोबाइल फोन का क्रय मूल्य (₹ में) है:

(1) 780 ✔
(2) 770
(3) 800
(4) 790

Q.46 The following table shows the number of candidates who appeared (A) and qualified (Q) in an examination from States P, N, R, and S from 2012 to 2015. Study the table and answer the question:

States	Years							
	2012		2013		2014		2015	
	A	Q	A	Q	A	Q	A	Q
P	2250	579	2340	685	4050	2246	3320	3158
N	1260	658	2150	512	3690	3250	4210	3815
R	3490	1212	3280	3007	4460	3489	5670	4444
S	2570	2060	1370	858	3210	3060	3930	3485

From all the four States, the total number of qualified candidates in 2012 to 2015 is what per cent (rounded off to the nearest integer) of the total number of appeared candidates in 2012 and 2014?

निम्नलिखित तालिका 2012 से 2015 तक राज्यों P, N, R और S से एक परीक्षा में उपस्थित (A) और उत्तीर्ण (Q) उम्मीदवारों की संख्या दर्शाती है। तालिका का अध्ययन कीजिए और प्रश्न का उत्तर दीजिए:

सभी चार राज्यों से, 2012 से 2015 तक उत्तीर्ण उम्मीदवारों की कुल संख्या, 2012 और 2014 में उपस्थित उम्मीदवारों की कुल संख्या का कितना प्रतिशत (निकटतम पूर्णांक तक पूर्णांकित) है?

(1) 76%

(2) 58%

(3) **66%** ✔

(4) 89%

Q.47 A and B can do a piece of work in 2 days and 19 days, respectively. The number of days [correct to one decimal place] required to complete the work if both A and B work together is:

A और B किसी कार्य को क्रमशः 2 दिन और 19 दिन में कर सकते हैं। यदि A और B दोनों एक साथ कार्य करें, तो कार्य को पूरा करने के लिए आवश्यक दिनों की संख्या [एक दशमलव स्थान तक सही] है:

(1) **1.8** ✔

(2) 1.1

(3) 3.6

(4) 0.5

Q.48 By how much is 70% of 40 greater than 3/5 of 45?

40 का 70%, 45 के 3/5 से कितना अधिक है?

(1) 6

(2) **1** ✔

(3) 5

(4) 3

Q.49 Two ropes are 56 m and 84 m long. Both have to be cut into pieces of exactly the same length. What is the greatest length (in m) that can be cut?

दो रस्सियाँ 56 m और 84 m लंबी हैं। दोनों को बिल्कुल समान लंबाई के टुकड़ों में काटना है। अधिकतम कितनी लंबाई (m में) के टुकड़े काटे जा सकते हैं?

(1) 14

(2) 84

(3) 56

(4) **28** ✔

QuickSarkari.com | WhatsApp Channel | Telegram: t.me/quick_sarkari

Q.50 If a 3125 m long train crosses a pole in 125 seconds, then find the time (in seconds) taken by the train to cross a 850 m long platform.

यदि 3125 m लंबी एक रेलगाड़ी एक खंभे को 125 सेकंड में पार करती है, तो रेलगाड़ी द्वारा 850 m लंबे प्लेटफॉर्म को पार करने में लिया गया समय (सेकंड में) ज्ञात कीजिए।

(1) 153
(2) 154
(3) 156
(4) 159 ✔

Q.51 The radii of two spheres are in the ratio of 5 : 2. If the surface area of the small sphere is 160 cm^{2}, then what is the surface area (in cm^{2}) of the larger sphere?

दो गोलों की त्रिज्याएँ 5 : 2 के अनुपात में हैं। यदि छोटे गोले का पृष्ठीय क्षेत्रफल 160 cm^2 है, तो बड़े गोले का पृष्ठीय क्षेत्रफल (cm^2 में) कितना है?

(1) 1000 ✔
(2) 450
(3) 2500
(4) 640

Q.52 A shirt was marked at ₹1,500 and sold for ₹1,155. What was the percentage discount?

एक कमीज़ का अंकित मूल्य ₹1,500 था और इसे ₹1,155 में बेचा गया। प्रतिशत छूट कितनी थी?

(1) 18%
(2) 20%
(3) 23% ✔
(4) 10%

Q.53 A group of people consists of men, women and children; 20% of them are men, 40% are women and the rest are children, and their average weights are 40 kg, 60 kg and 20 kg, respectively. The average weight of the group (in kg) is:

व्यक्तियों के एक समूह में पुरुष, महिलाएँ और बच्चे हैं; उनमें से 20% पुरुष, 40% महिलाएँ और शेष बच्चे हैं, और उनके औसत भार क्रमशः 40 kg, 60 kg और 20 kg हैं। समूह का औसत भार (kg में) है:

(1) 39
(2) 41
(3) 40 ✔
(4) 38

Q.54 A man travels from point A to B at a speed of 35 km/hr and returns to A through the same route by increasing his speed by 80% of his earlier speed. His average speed (in km/hr) for the whole journey is:

एक व्यक्ति बिंदु A से B तक 35 km/hr की चाल से यात्रा करता है और अपनी पिछली चाल में 80% की वृद्धि करके उसी मार्ग से A पर लौटता है। पूरी यात्रा के लिए उसकी औसत चाल (km/hr में) है:

(1) 47
(2) 45 ✔
(3) 46
(4) 42

Q.55 If a student scores 80 in a test with a weight of 30% and 90 in another test with a weight of 70%, what is the weighted average score?

यदि कोई छात्र 30% भार वाली एक परीक्षा में 80 और 70% भार वाली दूसरी परीक्षा में 90 अंक प्राप्त करता है, तो भारित औसत अंक क्या है?

(1) 88

(2) **87 ✔**

(3) 83

(4) 85

Q.56 Arvind bought an article for ₹x. He sold it to Biru at a loss of 20%. Biru spent ₹169 on its transportation and sold it to Minu at a profit of 52%. If Minu bought it for ₹1,406, then what is the value of x?

अरविंद ने एक वस्तु ₹x में खरीदी। उसने इसे 20% की हानि पर बीरू को बेच दिया। बीरू ने इसके परिवहन पर ₹169 खर्च किए और इसे 52% के लाभ पर मीनू को बेच दिया। यदि मीनू ने इसे ₹1,406 में खरीदा, तो x का मान क्या है?

(1) 909

(2) 977

(3) **945 ✔**

(4) 973

Q.57 A certain sum amounts to ₹15,003 at the rate of 21% per annum in 2 years, interest compounded 8-monthly. What will be the amount payable (in ₹, rounded off to the nearest number) on the same sum at the same rate and in the same time, if the interest is compounded yearly?

एक निश्चित धनराशि 21% वार्षिक दर पर 2 वर्षों में ₹15,003 हो जाती है, जब ब्याज 8-मासिक रूप से संयोजित होता है। यदि ब्याज वार्षिक रूप से संयोजित हो, तो उसी धनराशि पर उसी दर से और उसी समय में देय राशि (₹ में, निकटतम संख्या तक पूर्णांकित) कितनी होगी?

(1) 15,785

(2) **14,826 ✔**

(3) 13,947

(4) 14,606

Q.58 Two taps can fill a cistern in 15 hours and 11 hours, respectively. A third tap can empty it in 18 hours. How long will it take to fill the empty cistern, if all of the taps are opened together?

दो नल एक टंकी को क्रमशः 15 घंटे और 11 घंटे में भर सकते हैं। एक तीसरा नल इसे 18 घंटे में खाली कर सकता है। यदि सभी नल एक साथ खोल दिए जाएँ, तो खाली टंकी को भरने में कितना समय लगेगा?

(1) 15 81/101 hours / 15 81/101 घंटे

(2) 7 81/101 hours / 7 81/101 घंटे

(3) 18 81/101 hours / 18 81/101 घंटे

(4) **9 81/101 hours / 9 81/101 घंटे ✔**

Q.59 The volume of a conical tent is 2464 m^{3} and the area of the base floor is 616 m^{2}. Find the length of the canvas required (rounded off to two decimal places) to cover the tent, where the width of the canvas is 4 m.
(Use π = 22/7)

एक शंक्वाकार तंबू का आयतन 2464 m^3 है और आधार तल का क्षेत्रफल 616 m^2 है। तंबू को ढकने के लिए आवश्यक कैनवास की लंबाई (दो दशमलव स्थानों तक पूर्णांकित) ज्ञात कीजिए, जहाँ कैनवास की चौड़ाई 4 m है।
(π = 22/7 का प्रयोग कीजिए)

(1) 270.44 m
(2) **202.83 m ✔**
(3) 405.66 m
(4) 811.32 m

Q.60 If the mean proportional of P and 171 is 114, then find the value of P.

यदि P और 171 का मध्यानुपाती 114 है, तो P का मान ज्ञात कीजिए।

(1) 75
(2) 77
(3) **76 ✔**
(4) 74

Test of English Language and Comprehension

Q.61 Select the option that can be used as a one-word substitute for the given group of words.
A person who loves books and collects them

(1) Philosopher
(2) **Bibliophile ✔**
(3) Biologist
(4) Philanthropist

Q.62 Select the most appropriate option to fill in the blanks.
It was _____ honour to meet such _____ humble humanitarian during the conference.

(1) a, a
(2) a, an
(3) an, a
(4) **an, an ✔**

Q.63 Select the most appropriate ANTONYM of the given word.
Surplus

(1) Reams
(2) **Deficit ✔**
(3) Copious
(4) Needless

Q.64 Select the most appropriate conjunction to fill in the blank.
She vowed never to go back to that hospital again _____ she lived.

(1) in order that
(2) **as long as ✔**
(3) for
(4) because

Q.65 Select the most appropriate option to fill in the blank. Select 'No article required' if no article is required in the blank.
He dreams of becoming _____ university professor in the field of linguistics.

(1) **a ✔**
(2) the
(3) No article required
(4) an

Q.66 Select the most appropriate option to fill in the blank.
The ancient manuscript was so fragile that even a gentle touch could _____ its brittle pages.

(1) erase
(2) **crumble ✔**
(3) dismiss
(4) distort

Q.67 Sentences of a paragraph are given below in jumbled order. Arrange the sentences in the correct order to form a meaningful and coherent paragraph.
A. The silence of the forest was broken only by the occasional rustle of leaves, making every step feel like an intrusion.
B. As the group ventured deeper, the map began to make less sense, and nervous glances replaced casual chatter.
C. What had started as a simple hike through the national park slowly began to feel like a descent into the unknown.
D. The trail, once well-marked and wide, gradually narrowed into a path barely visible beneath the thick undergrowth.

(1) C – B – D – A
(2) A – C – B – D
(3) **C – D – A – B ✔**
(4) D – A – C – B

Q.68 Select the option that can be used as a one-word substitute for the given group of words/phrase.
Have you ever met a person who has a fear of spiders?

(1) amaxophobia
(2) astraphobia
(3) aerophobia
(4) **arachnophobia ✔**

Q.69 Select the most appropriate synonym of the given word.
Insolence

(1) Submissive
(2) **Disrespectful ✔**
(3) Composed
(4) Melancholy

Q.70 Select the most appropriate meaning of the given idiom.
Through thick and thin

(1) **In times of hardship and joy ✔**
(2) Only during good times
(3) Always telling the truth
(4) Going through a lot of challenges

Q.71 Select the most appropriate option to fill in the blank.
She spoke to the committee members _____, ensuring that her tone remained respectful despite the criticism.

(1) **gently ✔**
(2) awkwardly
(3) loudly
(4) rarely

Q.72 Parts of a sentence are given below in jumbled order. Arrange the parts in the correct order to form a meaningful sentence.
A. lies in transforming traditional education,
B. not in resisting change
C. the future of learning
D. but in embracing innovation

(1) **CABD ✔**
(2) DABC
(3) ABCD
(4) CBAD

Q.73 Select the most appropriate idiom that can substitute the underlined segment in the given sentence.
They decided to stop pursuing the unrealistic goal.

(1) throwing in the towel
(2) cutting corners
(3) barking up the wrong tree
(4) **chasing rainbows ✔**

Q.74 Select the INCORRECTLY spelt word.

(1) Entrepreneur
(2) Playwright
(3) Dumbbell
(4) **Astetrisk ✔**

QuickSarkari.com | WhatsApp Channel | Telegram: t.me/quick_sarkari

Q.75 Select the most appropriate option to fill in the blanks.
_____ there was a power cut in our locality, it became unbearable to stay indoors, _____ we decided to go shopping.

(1) As; and
(2) Since; but
(3) **Because; so ✔**
(4) Because; and

Q.76 Read the following passage and answer the questions based on it.
To avoid the various foolish opinions to which mankind is prone, no superhuman brain is required. A few simple rules will keep you free, not from all errors, but from silly errors. If the matter is one that can be settled by observation, make the observation yourself. Aristotle could have avoided the mistake of thinking that women have fewer teeth than man, by the simple device of asking Mrs. Aristotle to keep her mouth open while he counted. Thinking that you know when in fact you do not is a bad mistake, to which we are all prone. I believe myself that hedgehogs eat black beetles, because I have been told that they do; but if I was writing a book on the habits of hedgehogs, I should not commit myself until I had been one enjoying this diet. Aristotle, however, was less cautious. Ancient and medieval writers know all about unicorns and salamanders; not one of them thought it necessary to avoid dogmatic statements about them because he had never seen one of them.
——— Select the most appropriate ANTONYM of the given word in the context of the passage.
Dogmatic

(1) Emphatic
(2) **Open-minded ✔**
(3) Assertive
(4) Insistent

Q.77 Read the following passage and answer the questions based on it.
To avoid the various foolish opinions to which mankind is prone, no superhuman brain is required. A few simple rules will keep you free, not from all errors, but from silly errors. If the matter is one that can be settled by observation, make the observation yourself. Aristotle could have avoided the mistake of thinking that women have fewer teeth than man, by the simple device of asking Mrs. Aristotle to keep her mouth open while he counted. Thinking that you know when in fact you do not is a bad mistake, to which we are all prone. I believe myself that hedgehogs eat black beetles, because I have been told that they do; but if I was writing a book on the habits of hedgehogs, I should not commit myself until I had been one enjoying this diet. Aristotle, however, was less cautious. Ancient and medieval writers know all about unicorns and salamanders; not one of them thought it necessary to avoid dogmatic statements about them because he had never seen one of them.
——— What is the tone of the passage?

(1) Sarcastic and critical
(2) Pessimistic and serious
(3) **Humorous and instructive ✔**
(4) Emotional and dramatic

QuickSarkari.com | WhatsApp Channel | Telegram: t.me/quick_sarkari

Q.78 Read the following passage and answer the questions based on it.

To avoid the various foolish opinions to which mankind is prone, no superhuman brain is required. A few simple rules will keep you free, not from all errors, but from silly errors. If the matter is one that can be settled by observation, make the observation yourself. Aristotle could have avoided the mistake of thinking that women have fewer teeth than man, by the simple device of asking Mrs. Aristotle to keep her mouth open while he counted. Thinking that you know when in fact you do not is a bad mistake, to which we are all prone. I believe myself that hedgehogs eat black beetles, because I have been told that they do; but if I was writing a book on the habits of hedgehogs, I should not commit myself until I had been one enjoying this diet. Aristotle, however, was less cautious. Ancient and medieval writers know all about unicorns and salamanders; not one of them thought it necessary to avoid dogmatic statements about them because he had never seen one of them.

——— Select the most appropriate synonym of the given word in the context of the passage.

Prone

(1) Upright

(2) Immune

(3) Inclined ✔

(4) Resistant

Q.79 Read the following passage and answer the questions based on it.

To avoid the various foolish opinions to which mankind is prone, no superhuman brain is required. A few simple rules will keep you free, not from all errors, but from silly errors. If the matter is one that can be settled by observation, make the observation yourself. Aristotle could have avoided the mistake of thinking that women have fewer teeth than man, by the simple device of asking Mrs. Aristotle to keep her mouth open while he counted. Thinking that you know when in fact you do not is a bad mistake, to which we are all prone. I believe myself that hedgehogs eat black beetles, because I have been told that they do; but if I was writing a book on the habits of hedgehogs, I should not commit myself until I had been one enjoying this diet. Aristotle, however, was less cautious. Ancient and medieval writers know all about unicorns and salamanders; not one of them thought it necessary to avoid dogmatic statements about them because he had never seen one of them.

——— How does the author describe the human brain in the passage?

(1) Prone to errors and have limitations ✔

(2) Capable of learning new things

(3) Perfect and superhuman

(4) Incapable of learning from mistakes

QuickSarkari.com | WhatsApp Channel | Telegram: t.me/quick_sarkari

Q.80 Read the following passage and answer the questions based on it.

To avoid the various foolish opinions to which mankind is prone, no superhuman brain is required. A few simple rules will keep you free, not from all errors, but from silly errors. If the matter is one that can be settled by observation, make the observation yourself. Aristotle could have avoided the mistake of thinking that women have fewer teeth than man, by the simple device of asking Mrs. Aristotle to keep her mouth open while he counted. Thinking that you know when in fact you do not is a bad mistake, to which we are all prone. I believe myself that hedgehogs eat black beetles, because I have been told that they do; but if I was writing a book on the habits of hedgehogs, I should not commit myself until I had been one enjoying this diet. Aristotle, however, was less cautious. Ancient and medieval writers know all about unicorns and salamanders; not one of them thought it necessary to avoid dogmatic statements about them because he had never seen one of them.

——— What is the central theme of the passage?

(1) The value of good education

(2) The importance of skepticism

(3) **The importance of empirical observation over assumption ✔**

(4) Highlighting the mistakes made by historical figures

Test of Hindi Language and Comprehension

Q.81 'अनर्थ' शब्द के अनेक अर्थों में से निम्न में से एक अर्थ है –

(1) बेकार

(2) आज्ञा

(3) **अनुचित अर्थ ✔**

(4) खराब

Q.82 निम्न में से सर्वोचित क्रिया शब्द से वाक्य का रिक्त स्थान पूर्ण करें-- अपने माता-पिता का ..... मानो इसी में लाभ है।

(1) **कहना ✔**

(2) करना

(3) समझना

(4) काम

Q.83 उचित कारक चिह्न से दिए गए वाक्य का रिक्त स्थान पूर्ण करें— हरिदास साँझ ..... सैर करने के लिए घर से निकल जाते थे।

(1) **को ✔**

(2) द्वारा

(3) ने

(4) पर

Q.84 'शूर' का विलोम शब्द है-

(1) असुर

(2) वीर

(3) **कायर ✔**

(4) दंभी

Q.85 दिए गए वाक्य के किस शब्द की वर्तनी अशुद्ध है ?
'आज देवेश की दुकान का उदघाटन है ।

(1) उदघाटन ✔
(2) दुकान
(3) आज
(4) देवेश

Q.86 निम्नलिखित लोकोक्ति का सही अर्थ पहचानें।
छप्पर पर फूंस नहीं , ड्योढ़ी पर नाच

(1) दूसरों से उधर लेना
(2) घर में दुख और बाहर खुशी दिखाना
(3) शाम को नाच-गाना करना
(4) दिखावी ठाट-बाट और वास्तव में कुछ नहीं ✔

Q.87 निम्न में से तद्भव शब्द है--

(1) खीर ✔
(2) कोण
(3) कुष्ठ
(4) ग्राहक

Q.88 निम्नलिखित में से किस विकल्प के दोनों शब्द आपस में पर्यायवाची नहीं हैं?

(1) बेसुध-मूर्छित
(2) नश्वर-भद्दा ✔
(3) अचेत-बेहोश
(4) संज्ञाहीन-निश्चेष्ट

Q.89 राधा .....खाना बना लिया ।
उपरोक्त दिए गए वाक्य में रिक्त स्थान की पूर्ति के लिए उचित कारक शब्द का चयन करें –

(1) ने ✔
(2) से
(3) की
(4) में

Q.90 निम्नलिखित अव्यवस्थित वाक्यों को उचित क्रम में व्यवस्थित करके एक अर्थपूर्ण अनुच्छेद बनाएँ प्रथम और अंतिम (1 और 6) वाक्य उचित क्रम में हैं – 1 -मानव जीवन तभी सार्थक होता है।
2- जब व्यक्ति साहस और आत्मविश्वास के साथ उसे व्यतीत करता है।
3- ऐसा करने से वह असफल होने पर भी कभी निराश नहीं होता है ।
4-अंतत : सफलता प्राप्त करता है ।
5-बल्कि नई उमंग, नए विश्वास व नए साहस से फिर प्रयत्न करता है।
6- समाज व राष्ट्र का आदर्श बनता है ।

(1) 1, 5, 3, 2, 4, 6
(2) 1, 2,3, 5, 4, 6 ✔
(3) 1, 5, 4, 2, 3, 6
(4) 1, 5, 3, 4, 2, 6

QuickSarkari.com | WhatsApp Channel | Telegram: t.me/quick_sarkari

Q.91 दिए गए वाक्यांश के लिए सार्थक शब्द बताएं - 'नित्य दीन-दुखियों को भोजन देने की व्यवस्था'

(1) सदावर्त ✔

(2) संविदा

(3) सप्ताह

(4) सत्याग्रह

Q.92 'हवा हो जाना' मुहावरे का अर्थ निम्न में से है--

(1) डर जाना

(2) भाग जाना ✔

(3) दुर्बल होना

(4) तेज़ चलना

Q.93 'मर जाने की कामना'
उपरोक्त दिए गए वाक्यांश के लिए एक सार्थक शब्द का चुनाव करें –

(1) मृत्युंजय

(2) मुक्तहस्त

(3) मरणासन्न

(4) मुमूर्षा ✔

Q.94 इस खेत का कितना लागान है ?
उपरोक्त दिए गए वाक्य के किस भाग में वर्तनी संबंधी अशुद्धि है ?

(1) लागान ✔

(2) कितना

(3) इस

(4) खेत का

Q.95 निम्नलिखित वाक्यों के सही क्रम की पहचान करें जिससे यह एक सार्थक गद्यांश बन जाए- यह मेरे लिए मुश्किल भी नहीं था एक बार मुझे उपवास का शौक चढ़ा मैं छः दिन बिना खाए पिए रहा लेकिन उससे कम भूखा मैं छठीं रात को था दूसरे दिन मैं अधिक भूखा था

(1) 3, 2, 1, 4, 5

(2) 3, 5, 2, 1, 4

(3) 2, 1, 3, 5, 4 ✔

(4) 2, 4, 5, 3, 1

Q.96 दिए गए गद्यांश को ध्यानपूर्वक पढ़कर पूछे गए प्रश्नों के सर्वाधिक उपयुक्त उत्तर वाले विकल्प चुनकर लिखिए– राज कपूर ने एक अच्छे और सच्चे मित्र की हैसियत से शैलेंद्र को फ़िल्म की असफलता के खतरों से आगाह भी किया । पर वह तो एक आदर्शवादी भावुक कवि था, जिसे अपार संपत्ति और यश तक की इतनी कामना नहीं थी, जितनी आत्म-संतुष्टि के सुख की अभिलाषा थी । 'तीसरी कसम' कितनी ही महान् फ़िल्म क्यों न रही हो, लेकिन यह दुःखद सत्य है कि इसे प्रदर्शित करने के लिए बमुश्किल वितरक मिले । बावजूद इसके कि 'तीसरी कसम' में राज कपूर और वहीदा रहमान जैसे नामजद सितारे थे, शंकर-जयकिशन का संगीत था, जिनकी लोकप्रियता उन दिनों सातवें आसमान पर थी और उसके गीत भी फ़िल्म के प्रदर्शन के पूर्व ही बेहद लोकप्रिय हो चुके थे, लेकिन इस फ़िल्म को खरीदने वाला कोई नहीं था । दरअसल इस फ़िल्म की संवेदना किसी दो से चार बनाने का गणित जानने वाले की समझ से परे थी । उसमें रची-बसी करुणा तराजू पर तौली जा सकने वाली चीज़ नहीं थी ।
——— "उसमें रची-बसी करुणा तराजू पर तौली जा सकने वाली चीज़ नहीं थी ।" पंक्ति का आशय है -

(1) यह करुणा अर्थ का विषय थी, नाप-तोल का नहीं

(2) यह करुणा अनुभूति का विषय थी, नाप -तोल का नहीं ✔

(3) यह करुणा बुद्धि का विषय थी, नाप-तोल का नहीं

(4) यह करुणा व्यवहारिकता का विषय थी, नाप-तोल का नहीं

Q.97 दिए गए गद्यांश को ध्यानपूर्वक पढ़कर पूछे गए प्रश्नों के सर्वाधिक उपयुक्त उत्तर वाले विकल्प चुनकर लिखिए– राज कपूर ने एक अच्छे और सच्चे मित्र की हैसियत से शैलेंद्र को फ़िल्म की असफलता के खतरों से आगाह भी किया । पर वह तो एक आदर्शवादी भावुक कवि था, जिसे अपार संपत्ति और यश तक की इतनी कामना नहीं थी, जितनी आत्म-संतुष्टि के सुख की अभिलाषा थी । 'तीसरी कसम' कितनी ही महान् फ़िल्म क्यों न रही हो, लेकिन यह दुःखद सत्य है कि इसे प्रदर्शित करने के लिए बमुश्किल वितरक मिले । बावजूद इसके कि 'तीसरी कसम' में राज कपूर और वहीदा रहमान जैसे नामजद सितारे थे, शंकर-जयकिशन का संगीत था, जिनकी लोकप्रियता उन दिनों सातवें आसमान पर थी और उसके गीत भी फ़िल्म के प्रदर्शन के पूर्व ही बेहद लोकप्रिय हो चुके थे, लेकिन इस फ़िल्म को खरीदने वाला कोई नहीं था । दरअसल इस फ़िल्म की संवेदना किसी दो से चार बनाने का गणित जानने वाले की समझ से परे थी । उसमें रची-बसी करुणा तराजू पर तौली जा सकने वाली चीज़ नहीं थी ।
——— राज कपूर ने शैलेंद्र को किस बात से आगाह किया था ?

(1) फ़िल्म से कोई आर्थिक लाभ न मिलने वाली बात से
(2) फ़िल्म निर्माण में होने वाली परेशानियों से
(3) फ़िल्म का किसी को समझ न आने वाली बात से
(4) फ़िल्म की संभावित असफलता के खतरों से ✓

Q.98 दिए गए गद्यांश को ध्यानपूर्वक पढ़कर पूछे गए प्रश्नों के सर्वाधिक उपयुक्त उत्तर वाले विकल्प चुनकर लिखिए– राज कपूर ने एक अच्छे और सच्चे मित्र की हैसियत से शैलेंद्र को फ़िल्म की असफलता के खतरों से आगाह भी किया । पर वह तो एक आदर्शवादी भावुक कवि था, जिसे अपार संपत्ति और यश तक की इतनी कामना नहीं थी, जितनी आत्म-संतुष्टि के सुख की अभिलाषा थी । 'तीसरी कसम' कितनी ही महान् फ़िल्म क्यों न रही हो, लेकिन यह दुःखद सत्य है कि इसे प्रदर्शित करने के लिए बमुश्किल वितरक मिले । बावजूद इसके कि 'तीसरी कसम' में राज कपूर और वहीदा रहमान जैसे नामजद सितारे थे, शंकर-जयकिशन का संगीत था, जिनकी लोकप्रियता उन दिनों सातवें आसमान पर थी और उसके गीत भी फ़िल्म के प्रदर्शन के पूर्व ही बेहद लोकप्रिय हो चुके थे, लेकिन इस फ़िल्म को खरीदने वाला कोई नहीं था । दरअसल इस फ़िल्म की संवेदना किसी दो से चार बनाने का गणित जानने वाले की समझ से परे थी । उसमें रची-बसी करुणा तराजू पर तौली जा सकने वाली चीज़ नहीं थी ।
——— शैलेंद्र को किस प्रकार का व्यक्ति माना जा सकता है ?

(1) आत्म-संतुष्ट व्यक्ति
(2) प्रसिद्ध गीतकार
(3) कुशल फ़िल्म निर्माता
(4) आदर्शवादी भावुक कवि ✓

Q.99 दिए गए गद्यांश को ध्यानपूर्वक पढ़कर पूछे गए प्रश्नों के सर्वाधिक उपयुक्त उत्तर वाले विकल्प चुनकर लिखिए– राज कपूर ने एक अच्छे और सच्चे मित्र की हैसियत से शैलेंद्र को फ़िल्म की असफलता के खतरों से आगाह भी किया । पर वह तो एक आदर्शवादी भावुक कवि था, जिसे अपार संपत्ति और यश तक की इतनी कामना नहीं थी, जितनी आत्म-संतुष्टि के सुख की अभिलाषा थी । 'तीसरी कसम' कितनी ही महान् फ़िल्म क्यों न रही हो, लेकिन यह दुःखद सत्य है कि इसे प्रदर्शित करने के लिए बमुश्किल वितरक मिले । बावजूद इसके कि 'तीसरी कसम' में राज कपूर और वहीदा रहमान जैसे नामजद सितारे थे, शंकर-जयकिशन का संगीत था, जिनकी लोकप्रियता उन दिनों सातवें आसमान पर थी और उसके गीत भी फ़िल्म के प्रदर्शन के पूर्व ही बेहद लोकप्रिय हो चुके थे, लेकिन इस फ़िल्म को खरीदने वाला कोई नहीं था । दरअसल इस फ़िल्म की संवेदना किसी दो से चार बनाने का गणित जानने वाले की समझ से परे थी । उसमें रची-बसी करुणा तराजू पर तौली जा सकने वाली चीज़ नहीं थी ।
——— गद्यांश में आई पंक्ति - 'दो से चार बनाने का गणित' - का अर्थ है -

(1) अधिक-से-अधिक धन कमाना
(2) संख्याओं को गुणा करने का हिसाब
(3) संख्याओं को जोड़ने का हिसाब
(4) अधिक-से-अधिक मुनाफ़ा कमाना ✓

Q.100 दिए गए गद्यांश को ध्यानपूर्वक पढ़कर पूछे गए प्रश्नों के सर्वाधिक उपयुक्त उत्तर वाले विकल्प चुनकर लिखिए– राज कपूर ने एक अच्छे और सच्चे मित्र की हैसियत से शैलेंद्र को फ़िल्म की असफलता के खतरों से आगाह भी किया । पर वह तो एक आदर्शवादी भावुक कवि था, जिसे अपार संपत्ति और यश तक की इतनी कामना नहीं थी, जितनी आत्म-संतुष्टि के सुख की अभिलाषा थी । 'तीसरी कसम' कितनी ही महान् फ़िल्म क्यों न रही हो, लेकिन यह दुःखद सत्य है कि इसे प्रदर्शित करने के लिए बमुश्किल वितरक मिले । बावजूद इसके कि 'तीसरी कसम' में राज कपूर और वहीदा रहमान जैसे नामजद सितारे थे, शंकर-जयकिशन का संगीत था, जिनकी लोकप्रियता उन दिनों सातवें आसमान पर थी और उसके गीत भी फ़िल्म के प्रदर्शन के पूर्व ही बेहद लोकप्रिय हो चुके थे, लेकिन इस फ़िल्म को खरीदने वाला कोई नहीं था । दरअसल इस फ़िल्म की संवेदना किसी दो से चार बनाने का गणित जानने वाले की समझ से परे थी । उसमें रची-बसी करुणा तराजू पर तौली जा सकने वाली चीज़ नहीं थी ।
——— 'तीसरी कसम' फ़िल्म का दुःखद सत्य क्या था ?

(1) लोगों का फ़िल्म को न समझ पाना
(2) फ़िल्म का रुपहले पर्दे पर न पहुँच पाना
(3) फ़िल्म को प्रसिद्धि न मिल पाना
(4) फ़िल्म के लिए खरीददार का न मिलना ✔

Nurse Grade A

Q.101 Which documentation emphasises the complaints of the patient?
कौन-सा प्रलेखन रोगी की शिकायतों पर बल देता है?

(1) Problem-oriented charting / समस्या-उन्मुख चार्टिंग ✔
(2) Nursing Kardex / नर्सिंग कार्डेक्स
(3) Narrative charting / वर्णनात्मक (नैरेटिव) चार्टिंग
(4) Pie charting / पाई (Pie) चार्टिंग

Q.102 Approximately _____ needs to be pressed to palpate underlying abdominal organs while doing deep palpation of the abdomen.
उदर की गहन स्पर्श-परीक्षा (डीप पैल्पेशन) करते समय अंतर्निहित उदरीय अंगों को टटोलने के लिए लगभग _____ दबाने की आवश्यकता होती है।

(1) 4 cms ✔
(2) 8 cms
(3) 10 cms
(4) 2 cms

Q.103 Which of the following cells are responsible for the formation of the blood-brain barrier in the central nervous system?
केंद्रीय तंत्रिका तंत्र में रक्त-मस्तिष्क अवरोध (ब्लड-ब्रेन बैरियर) के निर्माण के लिए निम्नलिखित में से कौन-सी कोशिकाएँ उत्तरदायी हैं?

(1) Astrocytes / एस्ट्रोसाइट्स ✔
(2) Oligodendrocytes / ओलिगोडेंड्रोसाइट्स
(3) Ependymal cells / एपेंडिमल कोशिकाएँ
(4) Microglia / माइक्रोग्लिया

Q.104 What is the highest priority nursing intervention for a patient with decreased skin turgor and urine output?
त्वचा की घटी हुई स्फीति (स्किन टर्गर) और कम मूत्र उत्पादन वाले रोगी के लिए सर्वोच्च प्राथमिकता वाला नर्सिंग हस्तक्षेप क्या है?

(1) Monitor Sr. albumin and protein level / Sr. एल्ब्यूमिन और प्रोटीन स्तर की निगरानी करना
(2) Administer IV fluids/oral fluids / IV तरल/मौखिक तरल देना ✔
(3) Administer Inj. Lasix as per order / आदेशानुसार Inj. लेसिक्स देना
(4) Encourage them to take salt restricted diet / उन्हें नमक-प्रतिबंधित आहार लेने के लिए प्रोत्साहित करना

Q.105 A nurse's first action after an electrical fire in a patient's room should be to:

रोगी के कमरे में बिजली से आग लगने के बाद नर्स की पहली कार्रवाई होनी चाहिए:

(1) confine the fire by closing all the doors / सभी दरवाजे बंद करके आग को सीमित करना

(2) **remove all the patients in immediate danger / तत्काल खतरे में पड़े सभी रोगियों को हटाना ✔**

(3) activate fire alarm / फायर अलार्म सक्रिय करना

(4) extinguish the fire by using fire extinguishers / अग्निशामक यंत्रों का उपयोग करके आग बुझाना

Q.106 In the _____ stage of the nursing process, a nurse sets short-term and long-term goals of care and a plan of care for the patient's desired outcome.

नर्सिंग प्रक्रिया के _____ चरण में, नर्स रोगी के वांछित परिणाम के लिए देखभाल के अल्पकालिक और दीर्घकालिक लक्ष्य तथा देखभाल की योजना निर्धारित करती है।

(1) Implementation / कार्यान्वयन

(2) **Planning / योजना ✔**

(3) Assessment / मूल्यांकन (असेसमेंट)

(4) Evaluation / मूल्यांकन (इवैल्यूएशन)

Q.107 A person suffering from heat exhaustion should be:

ताप थकावट (हीट एग्ज़ॉशन) से पीड़ित व्यक्ति को:

(1) wrapped in blankets / कंबलों में लपेटना चाहिए

(2) given salty snacks / नमकीन नाश्ता देना चाहिए

(3) immersed in cold water / ठंडे पानी में डुबोना चाहिए

(4) **moved to a cool place and given fluids / ठंडे स्थान पर ले जाना चाहिए और तरल पदार्थ देने चाहिए ✔**

Q.108 The nurse measures the central adiposity of a child to identify which of the following nutritional problems?

नर्स निम्नलिखित में से किस पोषण संबंधी समस्या की पहचान करने के लिए बच्चे की केंद्रीय वसा (सेंट्रल एडिपोसिटी) को मापती है?

(1) Protein-energy malnutrition / प्रोटीन-ऊर्जा कुपोषण

(2) Neurological disorders / तंत्रिका संबंधी विकार

(3) **Childhood obesity / बाल्यावस्था मोटापा ✔**

(4) Cardiovascular disorders / हृदय संबंधी विकार

Q.109 Medication reconciliation refers to:

औषधि मिलान (मेडिकेशन रिकंसिलिएशन) से तात्पर्य है:

(1) **the list of medications the patient is taking / रोगी द्वारा ली जा रही औषधियों की सूची ✔**

(2) antibiotics taken by the patient / रोगी द्वारा ली गई एंटीबायोटिक्स

(3) high alert medications taken by the patient / रोगी द्वारा ली गई उच्च सतर्कता वाली औषधियाँ

(4) medications patient had taken during childhood / रोगी द्वारा बचपन में ली गई औषधियाँ

Q.110 The normal reaction of the urine specimen of an adult is:

एक वयस्क के मूत्र नमूने की सामान्य अभिक्रिया होती है:

(1) buffer / बफर

(2) catalyst / उत्प्रेरक

(3) **acidic / अम्लीय ✔**

(4) alkaline / क्षारीय

Q.111 _____ is a musical or a drum-like sound heard over the air-filled stomach.

_____ एक संगीतमय या ढोल जैसी ध्वनि है जो वायु से भरे आमाशय के ऊपर सुनाई देती है।

(1) Resonance / अनुनाद (रेज़ोनेंस)

(2) Flat / फ्लैट

(3) **Tympany / टिम्पनी ✔**

(4) Hyper-resonance / अति-अनुनाद (हाइपर-रेज़ोनेंस)

Q.112 When a patient has complaints of passing black tarry stool, it is:

जब किसी रोगी को काला तारकोल जैसा मल त्यागने की शिकायत होती है, तो यह है:

(1) diarrhoea / दस्त (डायरिया)

(2) **melena / मेलेना ✔**

(3) steatorrhea / स्टीटोरिया

(4) bowel incontinence / आंत्र असंयम

Q.113 The act of a patient using multiple drugs, with or without prescription, to treat sickness is referred to as:

किसी रोगी द्वारा बीमारी के उपचार के लिए, पर्चे सहित या उसके बिना, कई दवाओं का उपयोग करने के कार्य को कहा जाता है:

(1) misuse of medications / दवाओं का दुरुपयोग

(2) **polypharmacy / पॉलीफार्मेसी ✔**

(3) noncompliance / अननुपालन (नॉनकंप्लायंस)

(4) over-the-counter medication / बिना पर्चे के मिलने वाली (ओवर-द-काउंटर) दवा

Q.114 The type of ocular muscle used for the rotation of eyeballs upward and outward is called:

नेत्रगोलकों को ऊपर और बाहर की ओर घुमाने के लिए प्रयुक्त नेत्र पेशी के प्रकार को कहा जाता है:

(1) superior oblique / सुपीरियर ऑब्लिक

(2) **inferior oblique / इन्फीरियर ऑब्लिक ✔**

(3) inferior rectus / इन्फीरियर रेक्टस

(4) medial rectus / मीडियल रेक्टस

Q.115 A pale white or grey coloured stool passed by a patient indicates:

रोगी द्वारा त्यागा गया हल्का सफेद या धूसर रंग का मल इंगित करता है:

(1) excess of mucus secretion / श्लेष्मा (म्यूकस) का अत्यधिक स्राव

(2) **absence of bile in the intestine / आंत में पित्त की अनुपस्थिति ✔**

(3) pus in the intestine / आंत में मवाद

(4) excess of bile secretion / पित्त का अत्यधिक स्राव

Q.116 When a doctor prescribes a medicine which is to be given only when a patient requires, the prescription has _____.

जब कोई डॉक्टर ऐसी दवा लिखता है जो केवल रोगी को आवश्यकता होने पर ही दी जानी है, तो उस पर्चे में _____ होते हैं।

(1) one-time orders / एक-बार के आदेश (वन-टाइम ऑर्डर्स)

(2) now orders / नाउ ऑर्डर्स

(3) **PRN orders / PRN ऑर्डर्स ✔**

(4) stat orders / स्टैट (stat) ऑर्डर्स

QuickSarkari.com | WhatsApp Channel | Telegram: t.me/quick_sarkari

Q.117 Which part of the spleen has T and B-lymphocytes that activate during infection?
प्लीहा के किस भाग में T और B-लिम्फोसाइट्स होते हैं जो संक्रमण के दौरान सक्रिय होते हैं?

(1) Red pulp / लाल गूदा (रेड पल्प)
(2) Capsule / कैप्सूल
(3) **White pulp / श्वेत गूदा (व्हाइट पल्प) ✔**
(4) Trabeculae / ट्रैबेकुली

Q.118 Which cranial nerve stimulation causes ciliary muscle contraction?
किस कपाल तंत्रिका के उद्दीपन से सिलियरी पेशी संकुचित होती है?

(1) **Oculomotor / ऑक्यूलोमोटर ✔**
(2) Optic / ऑप्टिक
(3) Trigeminal / ट्राइजेमिनल
(4) Abducent / एब्ड्यूसेंट

Q.119 Which of the following nerves is involved in the sensation of taste on the tongue?
निम्नलिखित में से कौन-सी तंत्रिका जीभ पर स्वाद की संवेदना में शामिल है?

(1) Trochlear nerve / ट्रॉक्लियर तंत्रिका
(2) Trigeminal nerve / ट्राइजेमिनल तंत्रिका
(3) **Glossopharyngeal nerve / ग्लोसोफेरिंजियल तंत्रिका ✔**
(4) Hypoglossal nerve / हाइपोग्लोसल तंत्रिका

Q.120 An abnormal excessive convex curvature of the spine is referred to as:
मेरुदंड की असामान्य अत्यधिक उत्तल वक्रता को कहा जाता है:

(1) torticollis / टॉर्टिकोलिस
(2) scoliosis / स्कोलियोसिस
(3) lordosis / लॉर्डोसिस
(4) **kyphosis / काइफोसिस ✔**

Q.121 Which part of the ear is responsible for equalising pressure between the middle ear and the external environment, and can be affected during altitude change?
कान का कौन-सा भाग मध्य कर्ण और बाहरी वातावरण के बीच दाब को समान करने के लिए उत्तरदायी है, और ऊँचाई में परिवर्तन के दौरान प्रभावित हो सकता है?

(1) **Eustachian tube / यूस्टेकियन नलिका ✔**
(2) Tympanic membrane / कर्णपटह झिल्ली (टिम्पेनिक मेम्ब्रेन)
(3) External auditory meatus / बाह्य श्रवण कुहर (एक्सटर्नल ऑडिटरी मीटस)
(4) Oval window / अंडाकार खिड़की (ओवल विंडो)

Q.122 Upon examination, a patient is found to be pale and diaphoretic, with a heart rate of 130 beats/min, decreased cardiac output and blood pressure of 50/40 mmHg. Which type of shock should the nurse suspect?
परीक्षण करने पर, एक रोगी पीला और पसीने से तर पाया जाता है, जिसकी हृदय गति 130 धड़कन/मिनट, घटा हुआ कार्डियक आउटपुट और रक्तचाप 50/40 mmHg है। नर्स को किस प्रकार के शॉक का संदेह करना चाहिए?

(1) Cardiogenic shock / कार्डियोजेनिक शॉक
(2) **Hypovolemic shock / हाइपोवोलेमिक शॉक ✔**
(3) Neurogenic shock / न्यूरोजेनिक शॉक
(4) Anaphylactic shock / एनाफिलेक्टिक शॉक

Q.123 The amount of air passing into and out of the lungs during each breath is called:

प्रत्येक श्वास के दौरान फेफड़ों में अंदर और बाहर जाने वाली वायु की मात्रा को कहा जाता है:

(1) residual volume / अवशिष्ट आयतन (रेज़िडुअल वॉल्यूम)

(2) inspiratory residual volume / अंतःश्वसन अवशिष्ट आयतन

(3) **tidal volume / ज्वारीय आयतन (टाइडल वॉल्यूम) ✔**

(4) vital capacity / जैव क्षमता (वाइटल कैपेसिटी)

Q.124 When there is an acid base imbalance, the _____ acts fast to regulate the acid base balance.

जब अम्ल-क्षार असंतुलन होता है, तो अम्ल-क्षार संतुलन को नियंत्रित करने के लिए _____ तेज़ी से कार्य करता है।

(1) Cardiac system / हृदय तंत्र

(2) Renin-angiotensin system / रेनिन-एंजियोटेंसिन तंत्र

(3) **Buffer system / बफर तंत्र ✔**

(4) Neurosystem / तंत्रिका तंत्र

Q.125 A type of joint that is restricted to flexion and extension of the articulated end is called:

एक प्रकार का जोड़ जो संधित सिरे के आकुंचन (फ्लेक्शन) और प्रसार (एक्सटेंशन) तक सीमित होता है, कहलाता है:

(1) ball and socket / कंदुक-खल्लिका (बॉल एंड सॉकेट)

(2) **hinge / कब्जा (हिंज) ✔**

(3) gliding / विसर्पी (ग्लाइडिंग)

(4) pivot / धुराग्र (पिवट)

Q.126 At which anatomical point does the trachea divide into left and right primary bronchi?

किस शारीरिक बिंदु पर श्वासनली बाएँ और दाएँ प्राथमिक श्वसनियों (ब्रोंकाई) में विभाजित होती है?

(1) **Carina / कैरिना ✔**

(2) Sternal notch / स्टर्नल नॉच

(3) Supra sternum / सुप्रा स्टर्नम

(4) Hilum / हाइलम

Q.127 The molecules that stimulate immune response for antibody production in the body are called _____.

शरीर में प्रतिरक्षी (एंटीबॉडी) उत्पादन के लिए प्रतिरक्षा प्रतिक्रिया को उद्दीपित करने वाले अणुओं को _____ कहा जाता है।

(1) **antigens / प्रतिजन (एंटीजन) ✔**

(2) enzymes / एंजाइम

(3) structural proteins / संरचनात्मक प्रोटीन

(4) hormonal proteins / हार्मोनल प्रोटीन

Q.128 Antibody mediated cytotoxic hypersensitivity is otherwise known as what type of hypersensitivity?

प्रतिरक्षी-मध्यस्थ साइटोटॉक्सिक अतिसंवेदनशीलता को अन्यथा किस प्रकार की अतिसंवेदनशीलता के रूप में जाना जाता है?

(1) **Type II hypersensitivity / टाइप II अतिसंवेदनशीलता ✔**

(2) Type IV hypersensitivity / टाइप IV अतिसंवेदनशीलता

(3) Type III hypersensitivity / टाइप III अतिसंवेदनशीलता

(4) Type I hypersensitivity / टाइप I अतिसंवेदनशीलता

QuickSarkari.com | WhatsApp Channel | Telegram: t.me/quick_sarkari

Q.129 _____ is used to remove smaller tumours of the pituitary gland.

पीयूष ग्रंथि (पिट्यूटरी ग्लैंड) के छोटे ट्यूमरों को हटाने के लिए _____ का उपयोग किया जाता है।

(1) The endovascular surgical approach / एंडोवैस्कुलर शल्य उपागम

(2) The transsphenoidal surgical approach / ट्रांसस्फेनॉइडल शल्य उपागम ✓

(3) Craniotomy / क्रैनियोटॉमी

(4) The laproscopic surgical approach / लैप्रोस्कोपिक शल्य उपागम

Q.130 Ventilation perfusion ratio is the ratio of:

संवातन छिड़काव अनुपात (वेंटिलेशन परफ्यूज़न रेशियो) किसका अनुपात है?

(1) pulmonary ventilation to pulmonary blood flow / फुफ्फुसीय संवातन का फुफ्फुसीय रक्त प्रवाह से

(2) expired air volume to intrapulmonary pressure / निःश्वसित वायु आयतन का अंतःफुफ्फुसीय दाब से

(3) alveolar ventilation to pulmonary blood flow / कूपिकीय (एल्वियोलर) संवातन का फुफ्फुसीय रक्त प्रवाह से ✓

(4) minute ventilation to pulmonary capillary pressure / मिनट संवातन का फुफ्फुसीय केशिका दाब से

Q.131 Cryptorchidism is also known as _____.

क्रिप्टोर्किडिज़्म को _____ के रूप में भी जाना जाता है।

(1) poorly developed prostate / अल्पविकसित प्रोस्टेट

(2) poorly developed areola / अल्पविकसित एरिओला

(3) undescended testis / अवरोहित न हुआ वृषण (अनडिसेंडेड टेस्टिस) ✓

(4) undescended clitoris / अवरोहित न हुआ भगशेफ (अनडिसेंडेड क्लिटोरिस)

Q.132 What shape is a trophozoite?

ट्रोफोज़ॉइट का आकार कैसा होता है?

(1) Oval shaped / अंडाकार

(2) Wedge shaped / पच्चर के आकार का

(3) Heart shaped / हृदय के आकार का ✓

(4) Circular shaped / वृत्ताकार

Q.133 Pasteurisation, boiling and tyndallisation are examples of sterilisation by:

पाश्चुरीकरण, उबालना और टिंडलीकरण किसके द्वारा निर्जीवीकरण (स्टरलाइज़ेशन) के उदाहरण हैं?

(1) dry heat / शुष्क ऊष्मा

(2) moist heat / नम ऊष्मा ✓

(3) radiation / विकिरण

(4) filtration / निस्यंदन (फिल्ट्रेशन)

Q.134 Which of the following are accessory organs of the eye which have the capacity of moving the eye in almost any direction?

निम्नलिखित में से कौन-से नेत्र के सहायक अंग हैं जिनमें नेत्र को लगभग किसी भी दिशा में घुमाने की क्षमता होती है?

(1) Eyebrows / भौंहें

(2) Extrinsic eye muscles / बाह्य नेत्र पेशियाँ (एक्सट्रिंसिक आई मसल्स) ✓

(3) Eye balls / नेत्रगोलक

(4) Eyelids / पलकें

QuickSarkari.com | WhatsApp Channel | Telegram: t.me/quick_sarkari

Q.135 Which of the following clinical manifestations is typical of a hypothyroidism patient?
निम्नलिखित में से कौन-सी नैदानिक अभिव्यक्ति हाइपोथायरायडिज़्म के रोगी की विशिष्ट है?

(1) Constipation / कब्ज़ ✔
(2) Anorexia / एनोरेक्सिया (भूख न लगना)
(3) Elevated blood pressure / बढ़ा हुआ रक्तचाप
(4) Fine hair / महीन बाल

Q.136 Lepromin test is done to rule out:
लेप्रोमिन परीक्षण किसे निर्धारित करने के लिए किया जाता है?

(1) tetanus bacillus / टिटेनस बैसिलस
(2) salmonella typhi / साल्मोनेला टाइफी
(3) mycobacterium tuberculosis / माइकोबैक्टीरियम ट्यूबरकुलोसिस
(4) leprosy / कुष्ठ रोग ✔

Q.137 Which of the following muscles is used during the flexion of hip joint?
कूल्हे के जोड़ के आकुंचन (फ्लेक्शन) के दौरान निम्नलिखित में से किस पेशी का उपयोग होता है?

(1) Gluteus medius / ग्लूटियस मीडियस
(2) Gluteus maxims / ग्लूटियस मैक्सिमस
(3) Adductor group / एडक्टर समूह ✔
(4) Psoas / सोआस (Psoas)

Q.138 Erythropoietin is secreted from _____.
एरिथ्रोपोइटिन _____ से स्रावित होता है।

(1) pancreas / अग्न्याशय
(2) spleen / प्लीहा
(3) kidneys / वृक्क ✔
(4) liver / यकृत

Q.139 Urinary output of less than 400 ml per day in an adult is termed as:
किसी वयस्क में प्रतिदिन 400 ml से कम मूत्र उत्पादन को कहा जाता है:

(1) oliguria / ओलिगुरिया ✔
(2) nocturia / नॉक्टुरिया
(3) dysuria / डिस्यूरिया
(4) anuria / एन्यूरिया

Q.140 Who among the following identified mycobacterium tuberculosis, an acid-fast bacillus?
निम्नलिखित में से किसने अम्ल-स्थायी बैसिलस माइकोबैक्टीरियम ट्यूबरकुलोसिस की पहचान की थी?

(1) Robert Hook / रॉबर्ट हुक
(2) Alexander / अलेक्जेंडर
(3) Robert Koch / रॉबर्ट कोच ✔
(4) Louis Pasteur / लुई पाश्चर

QuickSarkari.com | WhatsApp Channel | Telegram: t.me/quick_sarkari

Q.141 Which of the following is the primary mechanism behind the development of oedema in burn patients?

जले हुए रोगियों में शोफ (एडिमा) के विकास के पीछे निम्नलिखित में से कौन-सी प्राथमिक क्रियाविधि है?

(1) Increased IV fluids / बढ़े हुए IV तरल

(2) Decreased urine output / घटा हुआ मूत्र उत्पादन

(3) Decreased cardiac output / घटा हुआ कार्डियक आउटपुट

(4) **Increased capillary permeability / बढ़ी हुई केशिका पारगम्यता ✓**

Q.142 Who among the following was the first graduate psychiatric nurse?

निम्नलिखित में से कौन पहली स्नातक मनोरोग नर्स थीं?

(1) Florence Nightingale / फ्लोरेंस नाइटिंगेल

(2) Dorothea Dix / डोरोथिया डिक्स

(3) **Linda Richards / लिंडा रिचर्ड्स ✓**

(4) Hildegard Peplau / हिल्डेगार्ड पेप्लौ

Q.143 A postnatal woman loses contact with reality and experiences delusions, hallucinations and disorientation. The nurse recognises that these manifestations are due to:

एक प्रसवोत्तर महिला वास्तविकता से संपर्क खो देती है और भ्रम, मतिभ्रम और दिग्भ्रम का अनुभव करती है। नर्स पहचानती है कि ये अभिव्यक्तियाँ किसके कारण हैं?

(1) postpartum blues / प्रसवोत्तर उदासी (पोस्टपार्टम ब्लूज़)

(2) postpartum depression / प्रसवोत्तर अवसाद

(3) **postpartum psychosis / प्रसवोत्तर मनोविकृति (पोस्टपार्टम साइकोसिस) ✓**

(4) borderline personality disorder / बॉर्डरलाइन व्यक्तित्व विकार

Q.144 Moon face with central obesity is seen in:

केंद्रीय मोटापे के साथ चंद्रमा जैसा चेहरा (मून फेस) किसमें देखा जाता है?

(1) Turner syndrome / टर्नर सिंड्रोम

(2) Down syndrome / डाउन सिंड्रोम

(3) **Cushing's syndrome / कुशिंग सिंड्रोम ✓**

(4) Addison's disease / एडिसन रोग

Q.145 What is the correct place to fix the transducer to monitor central venous pressure?

केंद्रीय शिरा दाब (सेंट्रल वेनस प्रेशर) की निगरानी के लिए ट्रांसड्यूसर को लगाने का सही स्थान क्या है?

(1) Erb's point / अर्ब्स पॉइंट

(2) Sternocleidomastoid muscle / स्टर्नोक्लाइडोमास्टॉइड पेशी

(3) Second intercostal space / द्वितीय अंतरापर्शुक स्थान (सेकंड इंटरकोस्टल स्पेस)

(4) **Phlebostatic axis / फ्लेबोस्टैटिक अक्ष ✓**

Q.146 Delusion is a disorder of:

भ्रम (डिल्यूज़न) किसका विकार है?

(1) perception / प्रत्यक्षण (परसेप्शन)

(2) judgement / निर्णय (जजमेंट)

(3) intelligence / बुद्धि

(4) **thought / चिंतन (थॉट) ✓**

Q.147 In _____ shock, initially the patient's skin is warm and later the patient has hypothermia.

_____ शॉक में, प्रारंभ में रोगी की त्वचा गर्म होती है और बाद में रोगी को हाइपोथर्मिया हो जाता है।

(1) anaphylactic / एनाफिलेक्टिक

(2) cardiogenic / कार्डियोजेनिक

(3) hypovolemic / हाइपोवोलेमिक

(4) **neurogenic / न्यूरोजेनिक ✔**

Q.148 A nurse is demonstrating a biochemical reaction by the phenylalanine deaminase test. The test will show positive by the detection of _____ colour.

एक नर्स फेनिलएलानिन डीएमिनेज़ परीक्षण द्वारा एक जैव-रासायनिक अभिक्रिया का प्रदर्शन कर रही है। परीक्षण _____ रंग के पता चलने से सकारात्मक दिखाई देगा।

(1) red / लाल

(2) yellow / पीला

(3) pinkish-red / गुलाबी-लाल

(4) **green / हरा ✔**

Q.149 The following are the signs and symptoms of Obstructive Sleep Apnea (OSA), EXCEPT:

निम्नलिखित ऑब्स्ट्रक्टिव स्लीप एपनिया (OSA) के संकेत और लक्षण हैं, सिवाय:

(1) loud snoring / तेज़ खर्राटे

(2) **diuresis / मूत्रवर्धन (डाइयूरेसिस) ✔**

(3) frequent nocturnal awakening / रात में बार-बार जागना

(4) excessive daytime sleepiness / दिन में अत्यधिक नींद आना

Q.150 The benefit of using open-ended questions in verbal communication is to encourage _____.

मौखिक संचार में मुक्त-अंत प्रश्नों (ओपन-एंडेड क्वेश्चन्स) के उपयोग का लाभ _____ को प्रोत्साहित करना है।

(1) very limited response / अत्यंत सीमित प्रतिक्रिया

(2) shorter conversations / छोटी बातचीत

(3) focus on specific information only / केवल विशिष्ट जानकारी पर ध्यान

(4) **detailed responses / विस्तृत प्रतिक्रियाएँ ✔**

Q.151 A nurse posted in the antenatal OPD found that the fundal height of a pregnant woman is palpated at the level of xiphisternum. What may be the approximate gestational week?

प्रसवपूर्व OPD में तैनात एक नर्स ने पाया कि एक गर्भवती महिला की फंडल ऊँचाई ज़िफ़ीस्टर्नम के स्तर पर स्पर्शित होती है। अनुमानित गर्भकालीन सप्ताह क्या हो सकता है?

(1) 12 weeks / 12 सप्ताह

(2) 24 weeks / 24 सप्ताह

(3) 28 weeks / 28 सप्ताह

(4) **36 weeks / 36 सप्ताह ✔**

Q.152 Which of the following atypical antipsychotic medication is used in the treatment of psychotic symptoms?

मनोविकृति के लक्षणों के उपचार में निम्नलिखित में से किस असामान्य (एटिपिकल) मनोविकाररोधी दवा का उपयोग किया जाता है?

(1) **Risperidone / रिस्पेरिडोन ✔**

(2) Lithium / लिथियम

(3) Chlorpromazine / क्लोरप्रोमाज़ीन

(4) Haloperidol / हेलोपेरिडोल

Q.153 Which of the following is a primary factor that contributes to health disparities?
निम्नलिखित में से कौन-सा एक प्राथमिक कारक है जो स्वास्थ्य असमानताओं में योगदान देता है?

(1) Standardised treatment protocol / मानकीकृत उपचार प्रोटोकॉल
(2) **Socio economic status / सामाजिक-आर्थिक स्थिति ✔**
(3) The 'Health for all' movement / 'सभी के लिए स्वास्थ्य' आंदोलन
(4) Attitude of health care provider / स्वास्थ्य देखभाल प्रदाता का दृष्टिकोण

Q.154 In which of the following conditions is synthetic levothyroxine drug used in the treatment?
निम्नलिखित में से किस स्थिति के उपचार में सिंथेटिक लेवोथायरोक्सिन दवा का उपयोग किया जाता है?

(1) Hyperthyroidism / हाइपरथायरायडिज़्म
(2) **Hypothyroidism / हाइपोथायरायडिज़्म ✔**
(3) Hyperparathyroidism / हाइपरपैराथायरायडिज़्म
(4) Hypoparathyroidism / हाइपोपैराथायरायडिज़्म

Q.155 An interdisciplinary approach used to provide health and social services with an oversight of the total health care plan by a nurse is referred to as _____.
नर्स द्वारा संपूर्ण स्वास्थ्य देखभाल योजना की देखरेख के साथ स्वास्थ्य और सामाजिक सेवाएँ प्रदान करने के लिए प्रयुक्त अंतःविषयक उपागम को _____ कहा जाता है।

(1) curative care / उपचारात्मक देखभाल
(2) primary care / प्राथमिक देखभाल
(3) preventive care / निवारक देखभाल
(4) **holistic care / समग्र देखभाल ✔**

Q.156 Which of the following is a characteristic of a lesion associated with psoriasis?
निम्नलिखित में से कौन-सी सोरायसिस से संबंधित घाव की विशेषता है?

(1) Clear, thin nail beds / साफ़, पतले नाखून तल
(2) Red-purplish scaly lesions / लाल-बैंगनी पपड़ीदार घाव
(3) **Silvery-white scaly patches / चाँदी जैसे सफ़ेद पपड़ीदार धब्बे ✔**
(4) Oily and moist skin / तैलीय और नम त्वचा

Q.157 During the assessment of pelvic grip in abdominal palpation, the nurse recognises that the head is big, not engaged and the cephalic prominence is felt on the side towards which the back lies. The nurse recognises the presentation to be:
उदरीय स्पर्श-परीक्षा में पेल्विक ग्रिप के मूल्यांकन के दौरान, नर्स पहचानती है कि सिर बड़ा है, एंगेज्ड नहीं है और सेफेलिक प्रॉमिनेंस उस ओर महसूस होता है जिस ओर पीठ स्थित है। नर्स प्रस्तुति (प्रेज़ेंटेशन) को पहचानती है:

(1) breech / ब्रीच
(2) shoulder / शोल्डर
(3) **face / फेस ✔**
(4) vertex / वर्टेक्स

Q.158 The nurse performs hand hygiene procedures to prevent the spread of infection. Which type of disinfection is she following?

संक्रमण के प्रसार को रोकने के लिए नर्स हाथ की स्वच्छता प्रक्रियाएँ करती है। वह किस प्रकार के विसंक्रमण का पालन कर रही है?

(1) Prophylactic disinfection / रोगनिरोधी विसंक्रमण ✔

(2) Concurrent disinfection / समवर्ती विसंक्रमण

(3) Terminal disinfection / अंतिम (टर्मिनल) विसंक्रमण

(4) Surgical disinfection / शल्य विसंक्रमण

Q.159 In which of the following conditions does bleeding occur in the cerebral lobes, basal ganglia, thalamus and brain stem?

निम्नलिखित में से किस स्थिति में प्रमस्तिष्क पालियों, बेसल गैंग्लिया, थैलेमस और ब्रेन स्टेम में रक्तस्राव होता है?

(1) Subdural haemorrhage / सबड्यूरल रक्तस्राव

(2) Subarachnoid haemorrhage / सबएरेक्नॉइड रक्तस्राव

(3) Intracerebral haemorrhage / इंट्रासेरेब्रल रक्तस्राव ✔

(4) Epidural haemorrhage / एपिड्यूरल रक्तस्राव

Q.160 Which of the following is the chief clinical manifestation that a nurse would expect to note in the early stages of cataract formation?

मोतियाबिंद बनने के प्रारंभिक चरणों में नर्स निम्नलिखित में से किस मुख्य नैदानिक अभिव्यक्ति के देखे जाने की अपेक्षा करेगी?

(1) Diplopia / द्विदृष्टि (डिप्लोपिया)

(2) Eye pain / आँख में दर्द

(3) Blurred vision / धुंधली दृष्टि ✔

(4) Floating spots / तैरते धब्बे

Q.161 The absence of breath sounds indicates:

श्वास ध्वनियों की अनुपस्थिति इंगित करती है:

(1) pneumonia / निमोनिया

(2) bronchiolitis / ब्रोंकियोलाइटिस

(3) bronchitis / ब्रोंकाइटिस

(4) pleural effusion / प्लूरल इफ्यूज़न ✔

Q.162 All of the following are signs of good attachment during lactation, EXCEPT:

निम्नलिखित सभी स्तनपान के दौरान अच्छे जुड़ाव (अटैचमेंट) के संकेत हैं, सिवाय:

(1) mouth wide open / मुँह पूरा खुला होना

(2) lower lip turned inward / निचला होंठ अंदर की ओर मुड़ा होना ✔

(3) chin touching breast / ठुड्डी का स्तन को छूना

(4) more areola visible above than below the mouth / मुँह के नीचे की तुलना में ऊपर अधिक एरिओला दिखाई देना

Q.163 When a baby is admitted in neonatal intensive care unit, the nurse should ensure primarily:

जब किसी शिशु को नवजात गहन चिकित्सा इकाई में भर्ती किया जाता है, तो नर्स को मुख्य रूप से सुनिश्चित करना चाहिए:

(1) close monitoring / निकट निगरानी

(2) to restrict the mother / माँ को प्रतिबंधित करना

(3) to feed the baby timely / शिशु को समय पर दूध पिलाना

(4) to keep the baby warm / शिशु को गर्म रखना ✔

Q.164 Which of the following tests is used to measure the attention of the individual?
व्यक्ति के ध्यान को मापने के लिए निम्नलिखित में से किस परीक्षण का उपयोग किया जाता है?

(1) Digit span / डिजिट स्पैन ✔
(2) Digit symbol / डिजिट सिंबल
(3) Comprehension / बोध (कॉम्प्रिहेंशन)
(4) Arithmetic / अंकगणित

Q.165 The function of fallopian tubes is to aid in:
फैलोपियन नलिकाओं का कार्य किसमें सहायता करना है?

(1) copulation and parturition / मैथुन और प्रसव
(2) germ cell maturation, storage and release / जनन कोशिका परिपक्वन, भंडारण और मोचन
(3) fertilisation and transport of gametes / निषेचन और युग्मकों का परिवहन ✔
(4) sex hormone production and ovulation / लिंग हार्मोन उत्पादन और अंडोत्सर्ग

Q.166 Foetal haemoglobin is a combination of:
भ्रूणीय हीमोग्लोबिन किसका संयोजन है?

(1) 2 α 2 γ ✔
(2) 2 α 2 Z
(3) 2 α 2 δ
(4) 2 α 2 β

Q.167 Which type of organisational structure promotes specialisation?
किस प्रकार की संगठनात्मक संरचना विशेषज्ञता को बढ़ावा देती है?

(1) Formal organisation / औपचारिक संगठन
(2) Matrix organisation / मैट्रिक्स संगठन
(3) Functional organisation / कार्यात्मक संगठन ✔
(4) Line organisation / लाइन संगठन

Q.168 What is it called when in a newborn, the oedema on the scalp crosses the midline?
जब किसी नवजात में सिर की त्वचा (स्कैल्प) पर शोफ मध्य रेखा को पार कर जाता है, तो इसे क्या कहा जाता है?

(1) Intracranial haemorrhage / अंतःकपालीय रक्तस्राव
(2) Caput succedaneum / कैपुट सक्सीडेनियम ✔
(3) Sublingual haematoma / सबलिंगुअल हीमेटोमा
(4) Cephalohaematoma / सेफेलोहीमेटोमा

Q.169 The incision site in the uterus for an elective Lower Segment Caesarean Section (LSCS) is:
वैकल्पिक लोअर सेगमेंट सिज़ेरियन सेक्शन (LSCS) के लिए गर्भाशय में चीरे का स्थान है:

(1) body / काय (बॉडी)
(2) isthmus / इस्थमस ✔
(3) fundus / फंडस
(4) cervical canal / ग्रीवा नलिका (सर्वाइकल कैनाल)

QuickSarkari.com | WhatsApp Channel | Telegram: t.me/quick_sarkari

Q.170 In the normal mechanism of labour, which of the following steps occurs after the crowning of the head?

प्रसव की सामान्य क्रियाविधि में, सिर के क्राउनिंग के बाद निम्नलिखित में से कौन-सा चरण होता है?

(1) Internal rotation / आंतरिक घूर्णन

(2) Flexion / आकुंचन (फ्लेक्शन)

(3) Restitution / रेस्टिट्यूशन

(4) **Extension / प्रसार (एक्सटेंशन) ✔**

Q.171 Goal-directed activities are difficult among patients with:

लक्ष्य-निर्देशित गतिविधियाँ किन रोगियों में कठिन होती हैं?

(1) **mania / उन्माद (मेनिया) ✔**

(2) dementia / मनोभ्रंश (डिमेंशिया)

(3) schizophrenia / सिज़ोफ्रेनिया

(4) phobia / दुर्भीति (फोबिया)

Q.172 A midwife is preparing to assist an obstetrician with forceps delivery. Which blade should the midwife hand over first?

एक मिडवाइफ़ फोरसेप्स प्रसव में प्रसूति-विशेषज्ञ की सहायता करने की तैयारी कर रही है। मिडवाइफ़ को पहले कौन-सा ब्लेड सौंपना चाहिए?

(1) **Left blade / बायाँ ब्लेड ✔**

(2) It varies depending on the situation. / यह स्थिति के अनुसार भिन्न होता है।

(3) Both blades simultaneously / दोनों ब्लेड एक साथ

(4) Right blade / दायाँ ब्लेड

Q.173 In neonates, jaundice becomes apparent at the sternum by serum bilirubin levels exceeding:

नवजातों में, सीरम बिलीरुबिन का स्तर कितने से अधिक होने पर उरोस्थि (स्टर्नम) पर पीलिया स्पष्ट हो जाता है?

(1) 1 mg/dl

(2) **2 mg/dl ✔**

(3) 1.5 mg/dl

(4) 0.5 mg/dl

Q.174 A woman has a haemoglobin level of 8 g/dl during the second trimester of pregnancy. The midwife will record the degree of anaemia as:

गर्भावस्था की दूसरी तिमाही के दौरान एक महिला का हीमोग्लोबिन स्तर 8 g/dl है। मिडवाइफ़ एनीमिया की मात्रा को किस रूप में दर्ज करेगी?

(1) no anaemia / कोई एनीमिया नहीं

(2) **moderate anaemia / मध्यम एनीमिया ✔**

(3) severe anaemia / गंभीर एनीमिया

(4) mild anaemia / हल्का एनीमिया

QuickSarkari.com | WhatsApp Channel | Telegram: t.me/quick_sarkari

Q.175 Which of the following steps should be avoided by a nurse while using Controlled Cord Traction (CCT) in active management of the third stage of labour?

प्रसव की तीसरी अवस्था के सक्रिय प्रबंधन में नियंत्रित नाल कर्षण (कंट्रोल्ड कॉर्ड ट्रैक्शन - CCT) का उपयोग करते समय नर्स द्वारा निम्नलिखित में से किस चरण से बचा जाना चाहिए?

(1) If the placenta does not descend within 30–40 seconds of CCT, discontinue the pull on the cord. / यदि CCT के 30–40 सेकंड के भीतर अपरा (प्लेसेंटा) नीचे नहीं उतरती है, तो नाल पर खिंचाव बंद कर दें।

(2) Gently apply cord traction between the contractions of uterus. / गर्भाशय के संकुचनों के बीच धीरे से नाल कर्षण लगाएँ। ✔

(3) Along with cord traction, apply counter traction above the pubic symphysis with the other hand. / नाल कर्षण के साथ-साथ, दूसरे हाथ से प्यूबिक सिम्फिसिस के ऊपर प्रति-कर्षण लगाएँ।

(4) Gently pull cord downwards to deliver the placenta when the uterus contracts. / जब गर्भाशय संकुचित हो, तो अपरा को बाहर निकालने के लिए नाल को धीरे से नीचे की ओर खींचें।

Q.176 What is another name of separation anxiety?

पृथक्करण चिंता (सेपरेशन एंग्ज़ाइटी) का दूसरा नाम क्या है?

(1) Detachment / विरक्ति (डिटैचमेंट)

(2) Anaclitic depression / एनाक्लिटिक अवसाद ✔

(3) Despair / निराशा (डिस्पेयर)

(4) Protest / विरोध (प्रोटेस्ट)

Q.177 A midwife performs a physical assessment to elicit anaemia. Which of the following areas is she expected to assess for the presence of pallor?

एक मिडवाइफ़ एनीमिया का पता लगाने के लिए शारीरिक मूल्यांकन करती है। पीलापन (पैलर) की उपस्थिति के लिए उससे निम्नलिखित में से किन क्षेत्रों का मूल्यांकन करने की अपेक्षा की जाती है?

(1) Gums, under the surface of the tongue and neck veins / मसूड़े, जीभ की निचली सतह और गर्दन की शिराएँ

(2) Bulbar conjunctiva, dorsum of the hand and fingers / बल्बर कंजंक्टाइवा, हाथ का पृष्ठ भाग और उँगलियाँ

(3) Palpebral conjunctiva, dorsum of the tongue and nail beds / पैल्पेब्रल कंजंक्टाइवा, जीभ का पृष्ठ भाग और नाखून तल ✔

(4) Sclera, hard palate and skin / श्वेतपटल (स्क्लेरा), कठोर तालु और त्वचा

Q.178 The third stage of separation anxiety for a hospitalised child stressor reaction is named as:

अस्पताल में भर्ती बच्चे की तनावकारक प्रतिक्रिया के रूप में पृथक्करण चिंता की तीसरी अवस्था को कहा जाता है:

(1) despair / निराशा (डिस्पेयर)

(2) depression / अवसाद

(3) detachment / विरक्ति (डिटैचमेंट) ✔

(4) protest / विरोध (प्रोटेस्ट)

Q.179 Which of the following birth conditions is common among high-risk mothers?

निम्नलिखित में से कौन-सी जन्म संबंधी स्थिति उच्च जोखिम वाली माताओं में सामान्य है?

(1) Maternal anaemia / मातृ एनीमिया

(2) Maternal infection / मातृ संक्रमण

(3) Maternal hypothyroidism / मातृ हाइपोथायरायडिज़्म

(4) Maternal diabetes mellitus / मातृ मधुमेह ✔

QuickSarkari.com | WhatsApp Channel | Telegram: t.me/quick_sarkari

Q.180 During delivery, the nurse supports the perineum with one hand using a clean pad and controls the birth of the head with the fingers of the other hand. The reason for this action is to:

प्रसव के दौरान, नर्स एक हाथ से साफ़ पैड का उपयोग करके मूलाधार (पेरिनियम) को सहारा देती है और दूसरे हाथ की उँगलियों से सिर के जन्म को नियंत्रित करती है। इस क्रिया का कारण है:

(1) maintain extension and increase perineal space / प्रसार (एक्सटेंशन) बनाए रखना और मूलाधार स्थान को बढ़ाना

(2) allow the shoulder to drop down the symphysis pubis / कंधे को सिम्फिसिस प्यूबिस से नीचे गिरने देना

(3) manually stretch the perineal tissue / मूलाधार ऊतक को हाथ से खींचना

(4) **maintain flexion and allow natural perineal stretching / आकुंचन (फ्लेक्शन) बनाए रखना और प्राकृतिक मूलाधार खिंचाव होने देना ✔**

Q.181 The value analysis of a material is performed primarily to ensure that a:

किसी सामग्री का मूल्य विश्लेषण मुख्य रूप से यह सुनिश्चित करने के लिए किया जाता है कि:

(1) purchase is made through the right method / खरीद सही विधि से की जाए

(2) **purchase is made at the right price / खरीद सही मूल्य पर की जाए ✔**

(3) purchase is made from the right source / खरीद सही स्रोत से की जाए

(4) purchase is made in the right quantity / खरीद सही मात्रा में की जाए

Q.182 Which undesirable conditions pose a risk when employing individuals in the lead industry?

सीसा उद्योग में व्यक्तियों को नियोजित करते समय कौन-सी अवांछनीय स्थितियाँ जोखिम उत्पन्न करती हैं?

(1) Asthma and precancerous lesions / दमा और पूर्व-कैंसर घाव

(2) Active tuberculosis and lung disease / सक्रिय क्षयरोग और फेफड़ों का रोग

(3) **Anaemia, hypertension / एनीमिया, उच्च रक्तचाप ✔**

(4) Liver disease and dermatitis / यकृत रोग और त्वचाशोथ (डर्मेटाइटिस)

Q.183 When a preschool child is admitted to the hospital, which of the following types of reaction will the child show due to hospitalisation?

जब किसी पूर्व-विद्यालयी बच्चे को अस्पताल में भर्ती किया जाता है, तो अस्पताल में भर्ती होने के कारण बच्चा निम्नलिखित में से किस प्रकार की प्रतिक्रिया दिखाएगा?

(1) Excessive crying / अत्यधिक रोना

(2) **Separation anxiety / पृथक्करण चिंता ✔**

(3) Anger / क्रोध

(4) Protest / विरोध (प्रोटेस्ट)

Q.184 Which of the following is a property/character of clostridium tetani?

निम्नलिखित में से कौन-सा क्लॉस्ट्रीडियम टेटेनी का गुण/लक्षण है?

(1) **Gram-positive, anaerobic, spore-bearing / ग्राम-पॉज़िटिव, अवायवीय, बीजाणु-धारी ✔**

(2) Gram-negative, anaerobic, spore-bearing / ग्राम-नेगेटिव, अवायवीय, बीजाणु-धारी

(3) Gram-negative, aerobic, non-spore forming / ग्राम-नेगेटिव, वायवीय, बीजाणु न बनाने वाला

(4) Gram-positive, aerobic, non-spore forming / ग्राम-पॉज़िटिव, वायवीय, बीजाणु न बनाने वाला

Q.185 Which of the following is NOT a principle of primary health care?

निम्नलिखित में से कौन-सा प्राथमिक स्वास्थ्य देखभाल का सिद्धांत नहीं है?

(1) Appropriate technology / उपयुक्त प्रौद्योगिकी

(2) **Decentralised approach / विकेंद्रीकृत उपागम ✔**

(3) Community participation / सामुदायिक भागीदारी

(4) Intersectoral coordination / अंतरक्षेत्रीय समन्वय

Q.186 Which of the following represents the correct order of material management processes?
निम्नलिखित में से कौन-सा सामग्री प्रबंधन प्रक्रियाओं के सही क्रम को दर्शाता है?

(1) Demand estimation, procurement, and storage, inventory / माँग आकलन, खरीद, और भंडारण, इन्वेंटरी ✔
(2) Storage, inventory, procurement and demand estimation / भंडारण, इन्वेंटरी, खरीद और माँग आकलन
(3) Procurement, demand estimation, storage and inventory / खरीद, माँग आकलन, भंडारण और इन्वेंटरी
(4) Inventory, demand estimation, storage and procurement / इन्वेंटरी, माँग आकलन, भंडारण और खरीद

Q.187 Which of the following is an activity to be performed during the evaluation phase of a home visit?
निम्नलिखित में से कौन-सी गतिविधि गृह भ्रमण (होम विज़िट) के मूल्यांकन चरण के दौरान की जानी है?

(1) Follow-through / फॉलो-थ्रू
(2) Use of expert technical skill / विशेषज्ञ तकनीकी कौशल का उपयोग
(3) Review of each family record / प्रत्येक पारिवारिक अभिलेख की समीक्षा ✔
(4) Planning for the next visit / अगले भ्रमण की योजना बनाना

Q.188 Which of the following aims of nursing education will enable the nurses to develop the appropriate skills and attitude for professional practice?
नर्सिंग शिक्षा के निम्नलिखित में से कौन-से उद्देश्य नर्सों को व्यावसायिक अभ्यास के लिए उपयुक्त कौशल और दृष्टिकोण विकसित करने में सक्षम बनाएँगे?

(1) Professional development aim / व्यावसायिक विकास उद्देश्य ✔
(2) Personality development aim / व्यक्तित्व विकास उद्देश्य
(3) Intellectual development aim / बौद्धिक विकास उद्देश्य
(4) Leadership development aim / नेतृत्व विकास उद्देश्य

Q.189 Which of the following is the preventive strategy for chickenpox infection in immunosuppressed individuals?
प्रतिरक्षा-दमित व्यक्तियों में चिकनपॉक्स संक्रमण के लिए निम्नलिखित में से कौन-सी निवारक रणनीति है?

(1) Initiating Varicella-Zoster immunoglobulin (VZIG) within 72 hours of exposure / संपर्क के 72 घंटों के भीतर वैरिसेला-ज़ोस्टर इम्युनोग्लोबुलिन (VZIG) आरंभ करना ✔
(2) Administering acyclovir prophylactically / रोगनिरोधी रूप से एसाइक्लोविर देना
(3) Isolating for 6 days after exposure / संपर्क के बाद 6 दिनों तक पृथक रखना
(4) Administering the Measles, Mumps, Rubella, and Varicella (MMRV) vaccine / खसरा, कण्ठमाला, रूबेला और वैरिसेला (MMRV) टीका देना

Q.190 Where are the adult worms of Bancroftian and Brugian Filariasis typically found in the human body?
बैंक्रॉफ्टियन और ब्रुगियन फाइलेरियासिस के वयस्क कृमि सामान्यतः मानव शरीर में कहाँ पाए जाते हैं?

(1) Lymphatic system / लसीका तंत्र ✔
(2) Liver / यकृत
(3) Lungs / फेफड़े
(4) Intestines / आंत

Q.191 In material management, the term 'ABC' denotes:
सामग्री प्रबंधन में, 'ABC' शब्द दर्शाता है:

(1) Adequately Best Coordinated / Adequately Best Coordinated (पर्याप्त रूप से सर्वोत्तम समन्वित)
(2) Always Better Control / Always Better Control (सदैव बेहतर नियंत्रण) ✔
(3) Aim Based Control / Aim Based Control (लक्ष्य आधारित नियंत्रण)
(4) Analysis for Better Cost / Analysis for Better Cost (बेहतर लागत के लिए विश्लेषण)

Q.192 In a community where there is a high prevalence of childhood obesity, which approach best exemplifies primary prevention?

जिस समुदाय में बाल्यावस्था मोटापे की व्यापकता अधिक है, वहाँ कौन-सा उपागम प्राथमिक रोकथाम का सर्वोत्तम उदाहरण है?

(1) Implementing regular health screenings to detect early signs of obesity-related complications / मोटापे से संबंधित जटिलताओं के प्रारंभिक संकेतों का पता लगाने के लिए नियमित स्वास्थ्य जाँच लागू करना

(2) Providing counseling sessions for obese individuals to manage their weight / मोटापे से ग्रस्त व्यक्तियों को उनका वज़न प्रबंधित करने के लिए परामर्श सत्र प्रदान करना

(3) Introducing policies that promote healthy eating and physical activity in schools / विद्यालयों में स्वस्थ भोजन और शारीरिक गतिविधि को बढ़ावा देने वाली नीतियाँ लागू करना ✔

(4) Offering free medications for adults diagnosed with obesity-related conditions / मोटापे से संबंधित स्थितियों से निदान किए गए वयस्कों को निःशुल्क दवाएँ प्रदान करना

Q.193 Which of the following statements describes Health-Adjusted Life Expectancy (HALE)?

निम्नलिखित में से कौन-सा कथन स्वास्थ्य-समायोजित जीवन प्रत्याशा (HALE) का वर्णन करता है?

(1) Life expectancy at birth includes an adjustment for time spent in poor health. / जन्म के समय जीवन प्रत्याशा में खराब स्वास्थ्य में बिताए गए समय के लिए समायोजन शामिल होता है। ✔

(2) It is used interchangeably to measure life expectancy. / इसका उपयोग जीवन प्रत्याशा को मापने के लिए परस्पर विनिमेय रूप से किया जाता है।

(3) It measures the number of years a person can live in perfect health. / यह उन वर्षों की संख्या को मापता है जो एक व्यक्ति पूर्ण स्वास्थ्य में जी सकता है।

(4) It is equal to one year of healthy life lost. / यह स्वस्थ जीवन के एक वर्ष की हानि के बराबर है।

Q.194 Sunken features, loss of subcutaneous fat, muscle wasting and body weight below 40% are the features of which of the following?

धँसी हुई आकृति, त्वचा के नीचे की वसा की हानि, पेशी क्षय और 40% से कम शारीरिक भार निम्नलिखित में से किसकी विशेषताएँ हैं?

(1) Kwashiorkor / क्वाशियोरकोर

(2) Dehydration / निर्जलीकरण

(3) Marasmus / मरास्मस ✔

(4) Tuberculosis / क्षयरोग

Q.195 Name the type of grievance that occurs when a nurse is not given a break during working hours.

उस प्रकार की शिकायत (ग्रीवेंस) का नाम बताइए जो तब उत्पन्न होती है जब किसी नर्स को कार्य घंटों के दौरान विश्राम नहीं दिया जाता है।

(1) Disguised grievance / प्रच्छन्न शिकायत

(2) Imaginary grievance / काल्पनिक शिकायत

(3) Factual grievance / तथ्यात्मक शिकायत ✔

(4) Dispute grievance / विवाद शिकायत

Q.196 When formulating objectives, what does the letter 'S' denote in the acronym SMART?

उद्देश्य निर्धारित करते समय, संक्षिप्त नाम SMART में अक्षर 'S' क्या दर्शाता है?

(1) Short term / Short term (अल्पकालिक)

(2) Specific / Specific (विशिष्ट) ✔

(3) Simple / Simple (सरल)

(4) Strategic / Strategic (रणनीतिक)

Q.197 Which of the following roles is NOT expected of a Community Health Officer (CHO) working in a Health and Wellness Center (HWC)?

हेल्थ एंड वेलनेस सेंटर (HWC) में कार्यरत सामुदायिक स्वास्थ्य अधिकारी (CHO) से निम्नलिखित में से कौन-सी भूमिका अपेक्षित नहीं है?

(1) Providing ambulatory care and management / एम्बुलेटरी देखभाल और प्रबंधन प्रदान करना

(2) **Organising Village Health Sanitation and Nutrition Day / ग्राम स्वास्थ्य स्वच्छता एवं पोषण दिवस का आयोजन करना ✔**

(3) Managing the efficient functioning of the Health and Wellness Centers / हेल्थ एंड वेलनेस सेंटरों के कुशल संचालन का प्रबंधन करना

(4) Promoting health, prevention and disease surveillance / स्वास्थ्य संवर्धन, रोकथाम और रोग निगरानी

Q.198 Which of the following malarial species is associated with a 72-hour fever cycle?

निम्नलिखित में से कौन-सी मलेरिया प्रजाति 72 घंटे के ज्वर चक्र से संबंधित है?

(1) Plasmodium falciparum / प्लाज़्मोडियम फाल्सीपेरम

(2) **Plasmodium malariae / प्लाज़्मोडियम मलेरी ✔**

(3) Plasmodium ovale / प्लाज़्मोडियम ओवेल

(4) Plasmodium vivax / प्लाज़्मोडियम वाइवैक्स

Q.199 Name the role where an experienced employee provides teaching and guidance to a new employee in the same area of work.

उस भूमिका का नाम बताइए जिसमें एक अनुभवी कर्मचारी उसी कार्य क्षेत्र में एक नए कर्मचारी को शिक्षण और मार्गदर्शन प्रदान करता है।

(1) **Preceptorship / प्रिसेप्टरशिप ✔**

(2) Guideship / गाइडशिप

(3) Supervisorship / सुपरवाइज़रशिप

(4) Mentorship / मेंटरशिप

Q.200 Which of the following is/are (a) prodromal symptom(s) commonly associated with rubella infection?

निम्नलिखित में से कौन-सा/से रूबेला संक्रमण से सामान्यतः संबंधित प्रोड्रोमल लक्षण है/हैं?

(1) Rash starting on the hands and feet / हाथों और पैरों से शुरू होने वाले चकत्ते

(2) Severe diarrhoea and related dehydration / गंभीर दस्त और संबंधित निर्जलीकरण

(3) High-grade fever and cough / तेज़ बुखार और खाँसी

(4) **Coryza, sore throat and low-grade fever / जुकाम (कोराइज़ा), गले में खराश और हल्का बुखार ✔**

Answer Key / उत्तर कुंजी

1 2	**2** 2	**3** 1	**4** 2	**5** 1	**6** 1	**7** 4	**8** 4	**9** 1	**10** 1	**11** 3	**12** 2	**13** 4	**14** 1	**15** 1
16 2	**17** 1	**18** 1	**19** 4	**20** 2	**21** 2	**22** 1	**23** 2	**24** 4	**25** 4	**26** 4	**27** 1	**28** 4	**29** 2	**30** 1
31 1	**32** 1	**33** 3	**34** 4	**35** 1	**36** 4	**37** 4	**38** 2	**39** 1	**40** 2	**41** 4	**42** 2	**43** 3	**44** 1	**45** 1
46 3	**47** 1	**48** 2	**49** 4	**50** 4	**51** 1	**52** 3	**53** 3	**54** 2	**55** 2	**56** 3	**57** 2	**58** 4	**59** 2	**60** 3
61 2	**62** 4	**63** 2	**64** 2	**65** 1	**66** 2	**67** 3	**68** 4	**69** 2	**70** 1	**71** 1	**72** 1	**73** 4	**74** 4	**75** 3
76 2	**77** 3	**78** 3	**79** 1	**80** 3	**81** 3	**82** 1	**83** 1	**84** 3	**85** 1	**86** 4	**87** 1	**88** 2	**89** 1	**90** 2

91 1	**92** 2	**93** 4	**94** 1	**95** 3	**96** 2	**97** 4	**98** 4	**99** 4	**100** 4	**101** 1	**102** 1	**103** 1	**104** 2	**105** 2
106 2	**107** 4	**108** 3	**109** 1	**110** 3	**111** 3	**112** 2	**113** 2	**114** 2	**115** 2	**116** 3	**117** 3	**118** 1	**119** 3	**120** 4
121 1	**122** 2	**123** 3	**124** 3	**125** 2	**126** 1	**127** 1	**128** 1	**129** 2	**130** 3	**131** 3	**132** 3	**133** 2	**134** 2	**135** 1
136 4	**137** 3	**138** 3	**139** 1	**140** 3	**141** 4	**142** 3	**143** 3	**144** 3	**145** 4	**146** 4	**147** 4	**148** 4	**149** 2	**150** 4
151 4	**152** 1	**153** 2	**154** 2	**155** 4	**156** 3	**157** 3	**158** 1	**159** 3	**160** 3	**161** 4	**162** 2	**163** 4	**164** 1	**165** 3
166 1	**167** 3	**168** 2	**169** 2	**170** 4	**171** 1	**172** 1	**173** 2	**174** 2	**175** 2	**176** 2	**177** 3	**178** 3	**179** 4	**180** 4
181 2	**182** 3	**183** 2	**184** 1	**185** 2	**186** 1	**187** 3	**188** 1	**189** 1	**190** 1	**191** 2	**192** 3	**193** 1	**194** 3	**195** 3
196 2	**197** 2	**198** 2	**199** 1	**200** 4										

Quick Sarkari

GOVT. OF NCT OF DELHI
Delhi Subordinate Services Selection Board
FC-18, Institutional Area, Karkardooma, Delhi – 110092.
www.dsssb.delhigovt.nic.in

Participant ID	
Participant Name	
Test Center Name	ION Digital Zone IDZ 1 Sector 62
Test Date	04/07/2025
Test Time	9:00 AM - 11:00 AM
Subject	Nurse Grade A

Section : **General intelligence and Reasoning Ability**

Q.1 **Read the given statements and conclusions carefully. Assuming that the information given in the statements is true, even if it appears to be at variance with commonly known facts, decide which of the given conclusion(s) logically follow(s) from the statements.**

Statements:
All apples are bananas.
No banana is a pineapple.
No banana is a litchi.

Conclusions:
(I) No apple is a pineapple.
(II) Some litchis are pineapples.

Ans ✗ 1. Both conclusions (I) and (II) follow.
✓ 2. Only conclusion (I) follows.
✗ 3. Only conclusion (II) follows.
✗ 4. Neither conclusion (I) nor (II) follows.

Question ID : **441009773319**
Option 1 ID : **4410093047282**
Option 2 ID : **4410093047279**
Option 3 ID : **4410093047280**
Option 4 ID : **4410093047281**

Q.2 **J, K, L, X, Y, and Z live on six different floors of the same building. The lowermost floor in the building is numbered 1, the floor above it, number 2 and so on, till the topmost floor is numbered 6. Only three people live between Y and X, where Y lives below X. J lives on an odd numbered floor and immediately above Y. Z lives on one of the floors below K and on one of the floors above L. Who lives on floor numbered 5?**

Ans ✗ 1. J
✓ 2. K
✗ 3. L
✗ 4. Y

Question ID : **441009353186**
Option 1 ID : **4410091378944**
Option 2 ID : **4410091378945**
Option 3 ID : **4410091378946**
Option 4 ID : **4410091378947**

QuickSarkari.com | WhatsApp Channel | Telegram: t.me/quick_sarkari

Q.3 All 16 people are standing in a row facing north. Kapil is 7th from the left end while Mohan is 4th from the right end. How many people are there between Kapil and Mohan?

Ans
- ✔ 1. 5
- ✘ 2. 3
- ✘ 3. 2
- ✘ 4. 4

Question ID : **441009353214**
Option 1 ID : **4410091379059**
Option 2 ID : **4410091379057**
Option 3 ID : **4410091379056**
Option 4 ID : **4410091379058**

Q.4 Based on the English alphabetical order, three of the following four letter-clusters are alike in a certain way and thus form a group. Which letter-cluster DOES NOT belong to that group?
(Note: The odd one out is not based on the number of consonants/vowels or their position in the letter-cluster.)

Ans
- ✘ 1. VRNJ
- ✔ 2. IEAV
- ✘ 3. BXTP
- ✘ 4. MIEA

Question ID : **441009379948**
Option 1 ID : **4410091485591**
Option 2 ID : **4410091485589**
Option 3 ID : **4410091485590**
Option 4 ID : **4410091485592**

Q.5 In a certain code language, 'DOME' is coded as '3518' and 'MADE' is coded as '6538'. What is the code for 'A' in the given code language?

Ans
- ✔ 1. 6
- ✘ 2. 5
- ✘ 3. 1
- ✘ 4. 3

Question ID : **441009196676**
Option 1 ID : **441009774516**
Option 2 ID : **441009774515**
Option 3 ID : **441009774513**
Option 4 ID : **441009774514**

QuickSarkari.com | WhatsApp Channel | Telegram: t.me/quick_sarkari

Q.6 Select the triad that follows the same pattern as that followed by the two triads given below. Both triads follow the same pattern.

(NOTE: Operations should be performed on the whole numbers, without breaking down the numbers into their constituent digits. E.g. 13 – Operations on 13 such as adding/subtracting/multiplying to 13 can be performed. Breaking down 13 into 1 and 3 and then performing mathematical operations on 1 and 3 is not allowed.)

15 - 3 - 45
2 - 6 - 12

Ans
✔ 1. 6 - 3 - 18
✘ 2. 13 - 2 - 28
✘ 3. 12 - 4 - 52
✘ 4. 5 - 9 - 54

Question ID : **441009196632**
Option 1 ID : **441009774339**
Option 2 ID : **441009774340**
Option 3 ID : **441009774337**
Option 4 ID : **441009774338**

Q.7 STRING is related to ZAYPUN in a certain way based on the English alphabetical order. In the same way, MUG is related to TBN. To which of the given options is NUTMEG related, following the same logic?

Ans
✘ 1. VBATLN
✘ 2. UYATLN
✘ 3. UBATLM
✔ 4. UBATLN

Question ID : **441009379905**
Option 1 ID : **4410091485420**
Option 2 ID : **4410091485419**
Option 3 ID : **4410091485418**
Option 4 ID : **4410091485417**

Q.8 Refer to the following number and symbol series and answer the question that follows. Counting to be done from left to right only.

(Left) # @ 8 $ £ 5 1 * 7 Ω 9 & 3 % 4 2 & 6 (Right)

How many such numbers are there each of which is immediately preceded by a number and also immediately followed by a symbol?

Ans
✘ 1. 3
✘ 2. 1
✘ 3. 4
✔ 4. 2

Question ID : **441009196680**
Option 1 ID : **441009774531**
Option 2 ID : **441009774529**
Option 3 ID : **441009774532**
Option 4 ID : **441009774530**

Quick Sarkari

Q.9 If + means −, − means ×, × means ÷, ÷ means +, then what will come in place of the question mark (?) in the following equation?

15 ÷ 9 × 3 + 4 − 3 = ?

Ans
✔ 1. 6
✘ 2. 30
✘ 3. 0
✘ 4. 17

Question ID : **441009353323**
Option 1 ID : **4410091379492**
Option 2 ID : **4410091379493**
Option 3 ID : **4410091379495**
Option 4 ID : **4410091379494**

Q.10 What should come in place of the question mark (?) in the given series?

7 14 28 49 ? 112

Ans
✔ 1. 77
✘ 2. 81
✘ 3. 98
✘ 4. 62

Question ID : **441009196625**
Option 1 ID : **441009774310**
Option 2 ID : **441009774311**
Option 3 ID : **441009774312**
Option 4 ID : **441009774309**

Q.11 What should come in place of the question mark (?) in the given series?

6 8 20 42 ? 116

Ans
✘ 1. 94
✘ 2. 86
✔ 3. 74
✘ 4. 62

Question ID : **441009196627**
Option 1 ID : **441009774320**
Option 2 ID : **441009774319**
Option 3 ID : **441009774318**
Option 4 ID : **441009774317**

Q.12 A is the father of B and C. D is the mother of C. E is the brother of D. F is the son of E. How is F related to A?

Ans
✘ 1. Father
✔ 2. Wife's brother's son
✘ 3. Husband
✘ 4. Wife's brother

Question ID : **441009773028**
Option 1 ID : **4410093046111**
Option 2 ID : **4410093046109**
Option 3 ID : **4410093046112**
Option 4 ID : **4410093046110**

QuickSarkari.com | WhatsApp Channel | Telegram: t.me/quick_sarkari

Q.13 If 'A' stands for '÷', 'B' stands for '×', 'C' stands for '+' and 'D' stands for '−', then what will come in place of the question mark (?) in the following equation?

75 B 41 D 306 A 2 C 57 = ?

Ans
✗ 1. 2866
✗ 2. 2552
✗ 3. 2369
✓ 4. 2979

Question ID : **441009196622**
Option 1 ID : **441009774300**
Option 2 ID : **441009774298**
Option 3 ID : **441009774297**
Option 4 ID : **441009774299**

Q.14 Refer to the following number and symbol series and answer the question. Counting to be done from left to right only. (All numbers are single-digit numbers only.)

(Left) 7 Ω 9 & 3 % 4 1 * & 6 2 # @ 8 $ £ 5 (Right)

How many such numbers are there each of which is immediately preceded by a symbol and also immediately followed by a number?

Ans
✓ 1. Two
✗ 2. One
✗ 3. Four
✗ 4. Three

Question ID : **441009353189**
Option 1 ID : **4410091378957**
Option 2 ID : **4410091378956**
Option 3 ID : **4410091378959**
Option 4 ID : **4410091378958**

Quick Sarkari

Q.15 If the water source is placed along A-B, as shown in the given figure, which of the given options will be the water reflection of the given figure?

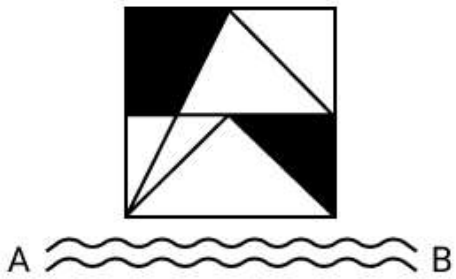

Ans

✔ 1.



✘ 2.



✘ 3.



✘ 4.



Question ID : **441009380380**
Option 1 ID : **4410091487318**
Option 2 ID : **4410091487317**
Option 3 ID : **4410091487320**
Option 4 ID : **4410091487319**

Q.16 AF 80 is related to CI 40 in a certain way. In the same way, DG 44 is related to FJ 22. To which of the given options is PS 64 related, following the same logic?

Ans

✘ 1. SU 34

✔ 2. RV 32

✘ 3. RW 36

✘ 4. SW 32

Question ID : **441009196671**
Option 1 ID : **441009774496**
Option 2 ID : **441009774493**
Option 3 ID : **441009774494**
Option 4 ID : **441009774495**

QuickSarkari.com | WhatsApp Channel | Telegram: t.me/quick_sarkari

Q.17 Based on the English alphabetical order, three of the following four letter-cluster pairs are alike in a certain way and thus form a group. Which letter-cluster pair DOES NOT belong to that group?
(Note: The odd one out is not based on the number of consonants/vowels or their position in the letter-cluster.)

Ans
✔ 1. KI-HC
✘ 2. GQ-EK
✘ 3. RB-PV
✘ 4. DN-BH

Question ID : **441009772964**
Option 1 ID : **4410093045854**
Option 2 ID : **4410093045856**
Option 3 ID : **4410093045855**
Option 4 ID : **4410093045853**

Q.18 Three of the following four triads are alike in a certain way and thus form a group. Which is the one that DOES NOT belong to that group?

(NOTE: Operations should be performed on the whole numbers, without breaking down the numbers into their constituent digits. E.g. 13 – Operations on 13 such as adding / subtracting /multiplying to 13 can be performed. Breaking down 13 into 1 and 3 and then performing mathematical operations on 1 and 3 is not allowed.)

65 - 30 - 35
40 - 6 - 34

Ans
✔ 1. 48 - 20 - 28
✘ 2. 56 - 3 - 52
✘ 3. 62 - 42 - 30
✘ 4. 32 - 20 - 14

Question ID : **441009196631**
Option 1 ID : **441009774334**
Option 2 ID : **441009774333**
Option 3 ID : **441009774336**
Option 4 ID : **441009774335**

Q.19 A, B, C, D, E, F, G and H are sitting around a circular table, facing the centre. A sits 2nd to the right of D. B sits 2nd to the left of C. F is an immediate neighbour of B. E is an immediate neighbour of A. C sits to the immediate right of G. H's immediate neighbours are C and D. What is the position of F with respect to E?

Ans
✘ 1. 3rd to the left
✘ 2. 3rd to the right
✘ 3. 2nd to the left
✔ 4. 2nd to the right

Question ID : **441009758965**
Option 1 ID : **4410092989854**
Option 2 ID : **4410092989856**
Option 3 ID : **4410092989855**
Option 4 ID : **4410092989853**

Quick Sarkari

Q.20 In a certain code language, 'MELT' is coded as '2618' and 'LATE' is coded as '6258'. What is the code for 'M' in the given code language?

Ans
✗ 1. 5
✓ 2. 1
✗ 3. 2
✗ 4. 8

Question ID : **441009196675**
Option 1 ID : **441009774509**
Option 2 ID : **441009774511**
Option 3 ID : **441009774510**
Option 4 ID : **441009774512**

Section : **General Awareness**

Q.1 The Koothandavar festival, celebrated annually in Koovagam, Tamil Nadu, is known for which of the following?

Ans
✗ 1. Celebration of martial arts traditions
✓ 2. Recognition and celebration of transgender identity
✗ 3. Worship of harvest deities by tribal communities
✗ 4. Honouring Tamil poets and scholars

Question ID : **441009398401**
Option 1 ID : **4410091559063**
Option 2 ID : **4410091559064**
Option 3 ID : **4410091559062**
Option 4 ID : **4410091559065**

Q.2 Which of the following animals belongs to the class Amphibia?

Ans
✓ 1. Toad
✗ 2. Sea horse
✗ 3. Snake
✗ 4. Fish

Question ID : **441009398412**
Option 1 ID : **4410091559108**
Option 2 ID : **4410091559106**
Option 3 ID : **4410091559109**
Option 4 ID : **4410091559107**

Q.3 Which of the following countries promoted the concept of 'One Sun, One World, One Grid' at the 26th session of the Conference of the Parties (COP26) to the United Nations Framework Convention on Climate Change (UNFCCC)?

Ans
✗ 1. United States of America
✓ 2. India
✗ 3. United Arab Emirates
✗ 4. Federal Republic of Germany

Question ID : **441009648910**
Option 1 ID : **4410092549916**
Option 2 ID : **4410092549918**
Option 3 ID : **4410092549917**
Option 4 ID : **4410092549919**

QuickSarkari.com | WhatsApp Channel | Telegram: t.me/quick_sarkari

Q.4 Which of the following festivals is celebrated in the Hindu month of Kartik?

Ans
✗ 1. Holi
✗ 2. Raksha Bandhan
✗ 3. Bhai Dhuj
✓ 4. Dev Diwali

Question ID : **441009398390**
Option 1 ID : **4410091559019**
Option 2 ID : **4410091559020**
Option 3 ID : **4410091559021**
Option 4 ID : **4410091559018**

Q.5 Robert Bruce Foote found the first group of implements at which place in India in 1863?

Ans
✗ 1. Kalpi
✗ 2. Bhimbetka
✗ 3. Kurnool
✓ 4. Pallavaram

Question ID : **441009645749**
Option 1 ID : **4410092537097**
Option 2 ID : **4410092537098**
Option 3 ID : **4410092537095**
Option 4 ID : **4410092537096**

Q.6 Which of the following statements regarding the High Courts in India is/are correct?

I. A High Court hears appeals from the lower courts.
II. A High Court can issue Writs for restoring Fundamental Rights.
III. A High Court deals with the cases within the Jurisdiction of the state.

Ans
✗ 1. I and II only
✗ 2. I and III only
✗ 3. III only
✓ 4. All I, II, and III

Question ID : **441009398469**
Option 1 ID : **4410091559337**
Option 2 ID : **4410091559334**
Option 3 ID : **4410091559336**
Option 4 ID : **4410091559335**

Q.7 Which of the following is FALSE about the Peninsular Plateau?

Ans
✓ 1. The northwestern part of the plateau is characterised by smooth, level terrain without any major landforms.
✗ 2. The Bhima fault is associated with significant seismic activities in the region.
✗ 3. The Peninsular Plateau has undergone recurrent upliftment and submergence, with associated crustal faulting and fractures.
✗ 4. The Chambal, Bhind and Morena are part of the Peninsular Plateau, renowned for their rugged topography, including well-known ravines.

Question ID : **441009389007**
Option 1 ID : **4410091521624**
Option 2 ID : **4410091521623**
Option 3 ID : **4410091521622**
Option 4 ID : **4410091521625**

QuickSarkari.com | WhatsApp Channel | Telegram: t.me/quick_sarkari

Q.8 **In the context of limitations on the authority of the Indian Parliament, which one of the following does NOT directly restrict its sovereignty?**

Ans
✗ 1. Written Constitution
✗ 2. Federal system of government
✗ 3. System of Judicial Review
✓ 4. Directive Principles of State Policy

Question ID : **441009644983**
Option 1 ID : **4410092534017**
Option 2 ID : **4410092534015**
Option 3 ID : **4410092534016**
Option 4 ID : **4410092534018**

Q.9 **As per the provisions given in the Indian Constitution, the people of India can claim _____.**

Ans
✗ 1. only economic justice
✓ 2. social, economic and political justice
✗ 3. only political justice
✗ 4. only social justice

Question ID : **441009197231**
Option 1 ID : **441009776699**
Option 2 ID : **441009776700**
Option 3 ID : **441009776698**
Option 4 ID : **441009776697**

Q.10 **What impact have rural employment schemes like MGNREGA had on rural labour migration to urban areas?**

Ans
✓ 1. There has been a significant reduction in distress-driven migration.
✗ 2. These schemes have completely stopped rural-urban migration.
✗ 3. They have increased migration due to lack of proper implementation.
✗ 4. Rural employment schemes have no impact on migration patterns.

Question ID : **441009388967**
Option 1 ID : **4410091521463**
Option 2 ID : **4410091521462**
Option 3 ID : **4410091521464**
Option 4 ID : **4410091521465**

Q.11 **Cutin, which forms the waterproof layer outside the cell wall, is secreted by the:**

Ans
✓ 1. epidermal cells
✗ 2. phloem cells
✗ 3. meristematic cells
✗ 4. xylem cells

Question ID : **441009398418**
Option 1 ID : **4410091559130**
Option 2 ID : **4410091559132**
Option 3 ID : **4410091559133**
Option 4 ID : **4410091559131**

Q.12 Which of the following is an INCORRECT statement about the Great Indian Desert?

Ans
✔ 1. It is characterised by flat, smooth terrain with no dunes or sand formations.
✘ 2. The Great Indian Desert has low vegetation cover due to the dry conditions.
✘ 3. The Great Indian Desert lies to the northwest of the Aravalli hills.
✘ 4. The region receives less than 150 mm of rainfall annually and has an arid climate.

Question ID : **441009389009**
Option 1 ID : **4410091521631**
Option 2 ID : **4410091521633**
Option 3 ID : **4410091521630**
Option 4 ID : **4410091521632**

Q.13 Who among the following founded 'Mohammedan Literary Society' at Calcutta in 1863?

Ans
✘ 1. Sayyid Ahmad Khan
✘ 2. Nawab Muhsinul Mulk
✔ 3. Nawab Abdul Latif
✘ 4. Maulvi Khudabakhsh

Question ID : **441009398450**
Option 1 ID : **4410091559261**
Option 2 ID : **4410091559259**
Option 3 ID : **4410091559258**
Option 4 ID : **4410091559260**

Q.14 When was the Sindhi language added in the Eighth Schedule of the Constitution of India?

Ans
✘ 1. 1981
✘ 2. 1960
✘ 3. 1998
✔ 4. 1967

Question ID : **441009398366**
Option 1 ID : **4410091558924**
Option 2 ID : **4410091558923**
Option 3 ID : **4410091558925**
Option 4 ID : **4410091558922**

Q.15 'Money is what money does' refers to:

Ans
✔ 1. the functions of money
✘ 2. the properties of money
✘ 3. the approaches to money
✘ 4. the form of money

Question ID : **441009388945**
Option 1 ID : **4410091521375**
Option 2 ID : **4410091521374**
Option 3 ID : **4410091521377**
Option 4 ID : **4410091521376**

QuickSarkari.com | WhatsApp Channel | Telegram: t.me/quick_sarkari

Q.16 Rudradaman was a famous ruler of which dynasty that ruled in the middle of the second century AD over almost the whole of western India?

Ans
- ✗ 1. Parthians
- ✗ 2. Kanva
- ✗ 3. Sunga
- ✓ 4. Shaka

Question ID : **441009645876**
Option 1 ID : **4410092537610**
Option 2 ID : **4410092537609**
Option 3 ID : **4410092537608**
Option 4 ID : **4410092537607**

Q.17 What is the name of India's first private satellite constellation launched by Pixxel, a space tech company?

Ans
- ✗ 1. SpaDex
- ✗ 2. Jugnu
- ✗ 3. Planetgaze
- ✓ 4. Firefly

Question ID : **441009388901**
Option 1 ID : **4410091521198**
Option 2 ID : **4410091521200**
Option 3 ID : **4410091521201**
Option 4 ID : **4410091521199**

Q.18 What was India's rank among the world's most polluted countries for the year 2024, in terms of Air Quality Index (AQI) and PM2.5?

Ans
- ✗ 1. 4th
- ✓ 2. 5th
- ✗ 3. 2nd
- ✗ 4. 3rd

Question ID : **441009643323**
Option 1 ID : **4410092527464**
Option 2 ID : **4410092527465**
Option 3 ID : **4410092527462**
Option 4 ID : **4410092527463**

Q.19 Which of the following cities hosted the 39th National Junior Athletics Championships from 7-11 December 2024?

Ans
- ✓ 1. Bhubaneswar
- ✗ 2. Ajmer
- ✗ 3. Thrissur
- ✗ 4. Pathankot

Question ID : **441009388915**
Option 1 ID : **4410091521255**
Option 2 ID : **4410091521257**
Option 3 ID : **4410091521254**
Option 4 ID : **4410091521256**

QuickSarkari.com | WhatsApp Channel | Telegram: t.me/quick_sarkari

Q.20 Which of the following is NOT included in non-economic production?

Ans
✗ 1. Services rendered to self
✓ 2. Services provided by public institutions
✗ 3. Services provided by the neighbours to each other
✗ 4. Services provided by the family members to the family members

Question ID : **441009388956**
Option 1 ID : **4410091521418**
Option 2 ID : **4410091521419**
Option 3 ID : **4410091521421**
Option 4 ID : **4410091521420**

Section : **Arithmetical and Numerical Ability**

Q.1 Admissions in the school increased by 30% this year. There are now 208 students in the school. How many students were there last year?

Ans
✗ 1. 145
✗ 2. 150
✗ 3. 175
✓ 4. 160

Question ID : **441009375732**
Option 1 ID : **4410091468474**
Option 2 ID : **4410091468475**
Option 3 ID : **4410091468476**
Option 4 ID : **4410091468477**

Q.2

$$\textit{Find the simplified value of } \frac{(2^5 \times 5^3 \times 2^4)}{(2^1 \times 5^3 \times 2^3)}$$

3144

Ans
✗ 1. 41
✓ 2. 32
✗ 3. 35
✗ 4. 40

Question ID : **441009560555**
Option 1 ID : **4410092197488**
Option 2 ID : **4410092197487**
Option 3 ID : **4410092197489**
Option 4 ID : **4410092197490**

Q.3 Anita borrows ₹52,000 and agrees to repay it after 3 years with simple interest at an annual rate of 4%. Calculate the total interest paid over the period.

Ans
✗ 1. ₹6,080
✗ 2. ₹6,480
✓ 3. ₹6,240
✗ 4. ₹6,770

Question ID : **441009353039**
Option 1 ID : **4410091378365**
Option 2 ID : **4410091378366**
Option 3 ID : **4410091378363**
Option 4 ID : **4410091378364**

QuickSarkari.com | WhatsApp Channel | Telegram: t.me/quick_sarkari

Q.4 ₹81,700 was divided among A, B and C, such that 6 times of A = 9 times of B = 5 times of C. Find the share of A.9905

Ans
✔ 1. ₹28,500
✘ 2. ₹28,692
✘ 3. ₹28,374
✘ 4. ₹28,386

Question ID : **441009548232**
Option 1 ID : **4410092148324**
Option 2 ID : **4410092148326**
Option 3 ID : **4410092148327**
Option 4 ID : **4410092148325**

Q.5 A man sells a mobile phone for ₹600 and loses some money. If he had sold it for ₹1140, his gain would have been twice the former loss. The cost price (in ₹) of the mobile phone is:

Ans
✔ 1. 780
✘ 2. 770
✘ 3. 800
✘ 4. 790

Question ID : **441009375853**
Option 1 ID : **4410091468958**
Option 2 ID : **4410091468960**
Option 3 ID : **4410091468961**
Option 4 ID : **4410091468959**

Q.6 The following table shows the number of candidates who appeared (A) and qualified (Q) in an examination from States P, N, R, and S from 2012 to 2015. Study the table and answer the question:

States	Years							
	2012		2013		2014		2015	
	A	Q	A	Q	A	Q	A	Q
P	2250	579	2340	685	4050	2246	3320	3158
N	1260	658	2150	512	3690	3250	4210	3815
R	3490	1212	3280	3007	4460	3489	5670	4444
S	2570	2060	1370	858	3210	3060	3930	3485

From all the four States, the total number of qualified candidates in 2012 to 2015 is what per cent (rounded off to the nearest integer) of the total number of appeared candidates in 2012 and 2014?

Ans
✘ 1. 76%
✘ 2. 58%
✔ 3. 66%
✘ 4. 89%

Question ID : **441009195908**
Option 1 ID : **441009771465**
Option 2 ID : **441009771467**
Option 3 ID : **441009771468**
Option 4 ID : **441009771466**

Q.7 A and B can do a piece of work in 2 days and 19 days, respectively. The number of days [correct to one decimal place] required to complete the work if both A and B work together is:

Ans
✔ 1. 1.8
✘ 2. 1.1
✘ 3. 3.6
✘ 4. 0.5

Question ID : **441009195897**
Option 1 ID : **441009771421**
Option 2 ID : **441009771424**
Option 3 ID : **441009771422**
Option 4 ID : **441009771423**

Q.8 By how much is 70% of 40 greater than $\frac{3}{5}$ of 45?

Ans
✘ 1. 6
✔ 2. 1
✘ 3. 5
✘ 4. 3

Question ID : **441009375922**
Option 1 ID : **4410091469235**
Option 2 ID : **4410091469234**
Option 3 ID : **4410091469237**
Option 4 ID : **4410091469236**

Q.9 Two ropes are 56 m and 84 m long. Both have to be cut into pieces of exactly the same length. What is the greatest length (in m) that can be cut?

Ans
✘ 1. 14
✘ 2. 84
✘ 3. 56
✔ 4. 28

Question ID : **441009353055**
Option 1 ID : **4410091378427**
Option 2 ID : **4410091378430**
Option 3 ID : **4410091378429**
Option 4 ID : **4410091378428**

Q.10 If a 3125 m long train crosses a pole in 125 seconds, then find the time (in seconds) taken by the train to cross a 850 m long platform.

Ans
✘ 1. 153
✘ 2. 154
✘ 3. 156
✔ 4. 159

Question ID : **441009195902**
Option 1 ID : **441009771444**
Option 2 ID : **441009771442**
Option 3 ID : **441009771443**
Option 4 ID : **441009771441**

QuickSarkari.com | WhatsApp Channel | Telegram: t.me/quick_sarkari

Q.11 The radii of two spheres are in the ratio of 5 : 2. If the surface area of the small sphere is 160 cm^2, then what is the surface area (in cm^2) of the larger sphere?

Ans
✔ 1. 1000
✘ 2. 450
✘ 3. 2500
✘ 4. 640

Question ID : **441009376124**
Option 1 ID : **4410091470045**
Option 2 ID : **4410091470042**
Option 3 ID : **4410091470043**
Option 4 ID : **4410091470044**

Q.12 A shirt was marked at ₹1,500 and sold for ₹1,155. What was the percentage discount?

Ans
✘ 1. 18%
✘ 2. 20%
✔ 3. 23%
✘ 4. 10%

Question ID : **441009798716**
Option 1 ID : **4410093148912**
Option 2 ID : **4410093148913**
Option 3 ID : **4410093148914**
Option 4 ID : **4410093148911**

Q.13 A group of people consists of men, women and children; 20% of them are men, 40% are women and the rest are children, and their average weights are 40 kg, 60 kg and 20 kg, respectively. The average weight of the group (in kg) is:886

Ans
✘ 1. 39
✘ 2. 41
✔ 3. 40
✘ 4. 38

Question ID : **441009517170**
Option 1 ID : **4410092024100**
Option 2 ID : **4410092024101**
Option 3 ID : **4410092024099**
Option 4 ID : **4410092024102**

Q.14 A man travels from point A to B at a speed of 35 km/hr and returns to A through the same route by increasing his speed by 80% of his earlier speed. His average speed (in km/hr) for the whole journey is:

Ans
✘ 1. 47
✔ 2. 45
✘ 3. 46
✘ 4. 42

Question ID : **441009353073**
Option 1 ID : **4410091378501**
Option 2 ID : **4410091378499**
Option 3 ID : **4410091378502**
Option 4 ID : **4410091378500**

QuickSarkari.com | WhatsApp Channel | Telegram: t.me/quick_sarkari

Q.15 If a student scores 80 in a test with a weight of 30% and 90 in another test with a weight of 70%, what is the weighted average score?

Ans
✗ 1. 88
✓ 2. 87
✗ 3. 83
✗ 4. 85

Question ID : **441009353061**
Option 1 ID : **4410091378454**
Option 2 ID : **4410091378453**
Option 3 ID : **4410091378451**
Option 4 ID : **4410091378452**

Q.16 Arvind bought an article for ₹x. He sold it to Biru at a loss of 20%. Biru spent ₹169 on its transportation and sold it to Minu at a profit of 52%. If Minu bought it for ₹1,406, then what is the value of x?4161

Ans
✗ 1. 909
✗ 2. 977
✓ 3. 945
✗ 4. 973

Question ID : **441009537686**
Option 1 ID : **4410092106142**
Option 2 ID : **4410092106143**
Option 3 ID : **4410092106140**
Option 4 ID : **4410092106141**

Q.17 A certain sum amounts to ₹15,003 at the rate of 21% per annum in 2 years, interest compounded 8-monthly. What will be the amount payable (in ₹, rounded off to the nearest number) on the same sum at the same rate and in the same time, if the interest is compounded yearly?

Ans
✗ 1. 15,785
✓ 2. 14,826
✗ 3. 13,947
✗ 4. 14,606

Question ID : **441009353078**
Option 1 ID : **4410091378520**
Option 2 ID : **4410091378519**
Option 3 ID : **4410091378521**
Option 4 ID : **4410091378522**

QuickSarkari

Q.18 Two taps can fill a cistern in 15 hours and 11 hours, respectively. A third tap can empty it in 18 hours. How long will it take to fill the empty cistern, if all of the taps are opened together?

Ans

✗ 1. $15\frac{81}{101} hours$

✗ 2. $7\frac{81}{101} hours$

✗ 3. $18\frac{81}{101} hours$

✓ 4. $9\frac{81}{101} hours$

Question ID : **441009353041**
Option 1 ID : **4410091378374**
Option 2 ID : **4410091378373**
Option 3 ID : **4410091378372**
Option 4 ID : **4410091378371**

Q.19 The volume of a conical tent is 2464 m^3 and the area of the base floor is 616 m^2. Find the length of the canvas required (rounded off to two decimal places) to cover the tent, where the width of the canvas is 4 m.

(Use $\pi = \frac{22}{7}$)

Ans

✗ 1. 270.44 m

✓ 2. 202.83 m

✗ 3. 405.66 m

✗ 4. 811.32 m

Question ID : **441009353133**
Option 1 ID : **4410091378742**
Option 2 ID : **4410091378740**
Option 3 ID : **4410091378741**
Option 4 ID : **4410091378739**

Q.20 If the mean proportional of P and 171 is 114, then find the value of P.

Ans

✗ 1. 75

✗ 2. 77

✓ 3. 76

✗ 4. 74

Question ID : **441009195884**
Option 1 ID : **441009771370**
Option 2 ID : **441009771372**
Option 3 ID : **441009771369**
Option 4 ID : **441009771371**

Section : **Test of English Language and Comprehension**

Q.1 **Select the option that can be used as a one-word substitute for the given group of words.**

A person who loves books and collects them 1224

Ans
✗ 1. Philosopher
✓ 2. Bibliophile
✗ 3. Biologist
✗ 4. Philanthropist

Question ID : **441009428880**
Option 1 ID : **4410091675040**
Option 2 ID : **4410091675039**
Option 3 ID : **4410091675038**
Option 4 ID : **4410091675041**

Q.2 **Select the most appropriate option to fill in the blanks.**

It was _____ honour to meet such _____ humble humanitarian during the conference.

Ans
✗ 1. a, a
✗ 2. a, an
✗ 3. an, a
✓ 4. an, an

Question ID : **441009463557**
Option 1 ID : **4410091812806**
Option 2 ID : **4410091812808**
Option 3 ID : **4410091812809**
Option 4 ID : **4410091812807**

Q.3 **Select the most appropriate ANTONYM of the given word.**

Surplus

Ans
✗ 1. Reams
✓ 2. Deficit
✗ 3. Copious
✗ 4. Needless

Question ID : **441009352989**
Option 1 ID : **4410091378171**
Option 2 ID : **4410091378170**
Option 3 ID : **4410091378172**
Option 4 ID : **4410091378173**

Q.4 **Select the most appropriate conjunction to fill in the blank.**

She vowed never to go back to that hospital again _____ she lived.

Ans
✗ 1. in order that
✓ 2. as long as
✗ 3. for
✗ 4. because

Question ID : **441009195213**
Option 1 ID : **441009768768**
Option 2 ID : **441009768767**
Option 3 ID : **441009768770**
Option 4 ID : **441009768769**

Q.5 **Select the most appropriate option to fill in the blank. Select 'No article required' if no article is required in the blank.**

He dreams of becoming _____ university professor in the field of linguistics.

Ans
✔ 1. a
✘ 2. the
✘ 3. No article required
✘ 4. an

Question ID : **441009460373**
Option 1 ID : **4410091800196**
Option 2 ID : **4410091800198**
Option 3 ID : **4410091800199**
Option 4 ID : **4410091800197**

Q.6 **Select the most appropriate option to fill in the blank.**

The ancient manuscript was so fragile that even a gentle touch could _____ its brittle pages.

Ans
✘ 1. erase
✔ 2. crumble
✘ 3. dismiss
✘ 4. distort

Question ID : **441009463626**
Option 1 ID : **4410091813084**
Option 2 ID : **4410091813083**
Option 3 ID : **4410091813085**
Option 4 ID : **4410091813082**

Q.7 **Sentences of a paragraph are given below in jumbled order. Arrange the sentences in the correct order to form a meaningful and coherent paragraph.**

A. The silence of the forest was broken only by the occasional rustle of leaves, making every step feel like an intrusion.
B. As the group ventured deeper, the map began to make less sense, and nervous glances replaced casual chatter.
C. What had started as a simple hike through the national park slowly began to feel like a descent into the unknown.
D. The trail, once well-marked and wide, gradually narrowed into a path barely visible beneath the thick undergrowth.

Ans
✘ 1. C – B – D – A
✘ 2. A – C – B – D
✔ 3. C – D – A – B
✘ 4. D – A – C – B

Question ID : **441009463653**
Option 1 ID : **4410091813192**
Option 2 ID : **4410091813191**
Option 3 ID : **4410091813190**
Option 4 ID : **4410091813193**

Q.8 **Select the option that can be used as a one-word substitute for the given group of words/phrase.**

Have you ever met a person who has a fear of spiders?1241

Ans
✗ 1. amaxophobia
✗ 2. astraphobia
✗ 3. aerophobia
✓ 4. arachnophobia

Question ID : **441009428897**
Option 1 ID : **4410091675109**
Option 2 ID : **4410091675108**
Option 3 ID : **4410091675107**
Option 4 ID : **4410091675106**

Q.9 **Select the most appropriate synonym of the given word.**

Insolence

Ans
✗ 1. Submissive
✓ 2. Disrespectful
✗ 3. Composed
✗ 4. Melancholy

Question ID : **441009376618**
Option 1 ID : **4410091471934**
Option 2 ID : **4410091471936**
Option 3 ID : **4410091471935**
Option 4 ID : **4410091471937**

Q.10 **Select the most appropriate meaning of the given idiom.**
Through thick and thin

Ans
✓ 1. In times of hardship and joy
✗ 2. Only during good times
✗ 3. Always telling the truth
✗ 4. Going through a lot of challenges

Question ID : **44100934979**
Option 1 ID : **441009139278**
Option 2 ID : **441009139280**
Option 3 ID : **441009139279**
Option 4 ID : **441009139281**

Q.11 **Select the most appropriate option to fill in the blank.**

She spoke to the committee members _____, ensuring that her tone remained respectful despite the criticism.

Ans
✓ 1. gently
✗ 2. awkwardly
✗ 3. loudly
✗ 4. rarely

Question ID : **441009463587**
Option 1 ID : **4410091812927**
Option 2 ID : **4410091812928**
Option 3 ID : **4410091812926**
Option 4 ID : **4410091812929**

QuickSarkari.com | WhatsApp Channel | Telegram: t.me/quick_sarkari

Q.12 Parts of a sentence are given below in jumbled order. Arrange the parts in the correct order to form a meaningful sentence.

A. lies in transforming traditional education,
B. not in resisting change
C. the future of learning
D. but in embracing innovation

Ans
✔ 1. CABD
✘ 2. DABC
✘ 3. ABCD
✘ 4. CBAD

Question ID : **441009460669**
Option 1 ID : **4410091801381**
Option 2 ID : **4410091801383**
Option 3 ID : **4410091801382**
Option 4 ID : **4410091801380**

Q.13 Select the most appropriate idiom that can substitute the underlined segment in the given sentence.

They decided to stop <u>pursuing the unrealistic goal</u>.

Ans
✘ 1. throwing in the towel
✘ 2. cutting corners
✘ 3. barking up the wrong tree
✔ 4. chasing rainbows

Question ID : **441009195284**
Option 1 ID : **441009769028**
Option 2 ID : **441009769030**
Option 3 ID : **441009769029**
Option 4 ID : **441009769027**

Q.14 Select the INCORRECTLY spelt word.

Ans
✘ 1. Entrepreneur
✘ 2. Playwright
✘ 3. Dumbbell
✔ 4. Astetrisk

Question ID : **441009397495**
Option 1 ID : **4410091555423**
Option 2 ID : **4410091555421**
Option 3 ID : **4410091555420**
Option 4 ID : **4410091555422**

Q.15 Select the most appropriate option to fill in the blanks.

_____ there was a power cut in our locality, it became unbearable to stay indoors, _____ we decided to go shopping.

Ans
✘ 1. As; and
✘ 2. Since; but
✔ 3. Because; so
✘ 4. Because; and

Question ID : **441009352900**
Option 1 ID : **4410091377842**
Option 2 ID : **4410091377843**
Option 3 ID : **4410091377844**
Option 4 ID : **4410091377845**

Comprehension:

Read the following passage and answer the questions based on it.

To avoid the various foolish opinions to which mankind is prone, no superhuman brain is required. A few simple rules will keep you free, not from all errors, but from silly errors. If the matter is one that can be settled by observation, make the observation yourself. Aristotle could have avoided the mistake of thinking that women have fewer teeth than man, by the simple device of asking Mrs. Aristotle to keep her mouth open while he counted. Thinking that you know when in fact you do not is a bad mistake, to which we are all prone. I believe myself that hedgehogs eat black beetles, because I have been told that they do; but if I was writing a book on the habits of hedgehogs, I should not commit myself until I had been one enjoying this diet. Aristotle, however, was less cautious. Ancient and medieval writers know all about unicorns and salamanders; not one of them thought it necessary to avoid dogmatic statements about them because he had never seen one of them.

SubQuestion No : 16

Q.16 Select the most appropriate ANTONYM of the given word in the context of the passage.

Dogmatic

Ans

✗ 1. Emphatic

✓ 2. Open-minded

✗ 3. Assertive

✗ 4. Insistent

Question ID : **441009376413**
Option 1 ID : **4410091471207**
Option 2 ID : **4410091471206**
Option 3 ID : **4410091471208**
Option 4 ID : **4410091471209**

Comprehension:

Read the following passage and answer the questions based on it.

To avoid the various foolish opinions to which mankind is prone, no superhuman brain is required. A few simple rules will keep you free, not from all errors, but from silly errors. If the matter is one that can be settled by observation, make the observation yourself. Aristotle could have avoided the mistake of thinking that women have fewer teeth than man, by the simple device of asking Mrs. Aristotle to keep her mouth open while he counted. Thinking that you know when in fact you do not is a bad mistake, to which we are all prone. I believe myself that hedgehogs eat black beetles, because I have been told that they do; but if I was writing a book on the habits of hedgehogs, I should not commit myself until I had been one enjoying this diet. Aristotle, however, was less cautious. Ancient and medieval writers know all about unicorns and salamanders; not one of them thought it necessary to avoid dogmatic statements about them because he had never seen one of them.

SubQuestion No : 17

Q.17 What is the tone of the passage?

Ans

✗ 1. Sarcastic and critical

✗ 2. Pessimistic and serious

✓ 3. Humorous and instructive

✗ 4. Emotional and dramatic

Question ID : **441009376410**
Option 1 ID : **4410091471197**
Option 2 ID : **4410091471194**
Option 3 ID : **4410091471196**
Option 4 ID : **4410091471195**

Comprehension:

Read the following passage and answer the questions based on it.

To avoid the various foolish opinions to which mankind is prone, no superhuman brain is required. A few simple rules will keep you free, not from all errors, but from silly errors. If the matter is one that can be settled by observation, make the observation yourself. Aristotle could have avoided the mistake of thinking that women have fewer teeth than man, by the simple device of asking Mrs. Aristotle to keep her mouth open while he counted. Thinking that you know when in fact you do not is a bad mistake, to which we are all prone. I believe myself that hedgehogs eat black beetles, because I have been told that they do; but if I was writing a book on the habits of hedgehogs, I should not commit myself until I had been one enjoying this diet. Aristotle, however, was less cautious. Ancient and medieval writers know all about unicorns and salamanders; not one of them thought it necessary to avoid dogmatic statements about them because he had never seen one of them.

SubQuestion No : 18

Q.18 Select the most appropriate synonym of the given word in the context of the passage.

Prone

Ans

✗ 1. Upright

✗ 2. Immune

✓ 3. Inclined

✗ 4. Resistant

Question ID : **441009376414**
Option 1 ID : **4410091471213**
Option 2 ID : **4410091471210**
Option 3 ID : **4410091471211**
Option 4 ID : **4410091471212**

Comprehension:

Read the following passage and answer the questions based on it.

To avoid the various foolish opinions to which mankind is prone, no superhuman brain is required. A few simple rules will keep you free, not from all errors, but from silly errors. If the matter is one that can be settled by observation, make the observation yourself. Aristotle could have avoided the mistake of thinking that women have fewer teeth than man, by the simple device of asking Mrs. Aristotle to keep her mouth open while he counted. Thinking that you know when in fact you do not is a bad mistake, to which we are all prone. I believe myself that hedgehogs eat black beetles, because I have been told that they do; but if I was writing a book on the habits of hedgehogs, I should not commit myself until I had been one enjoying this diet. Aristotle, however, was less cautious. Ancient and medieval writers know all about unicorns and salamanders; not one of them thought it necessary to avoid dogmatic statements about them because he had never seen one of them.

SubQuestion No : 19

Q.19 How does the author describe the human brain in the passage?

Ans

✓ 1. Prone to errors and have limitations

✗ 2. Capable of learning new things

✗ 3. Perfect and superhuman

✗ 4. Incapable of learning from mistakes

Question ID : **441009376411**
Option 1 ID : **4410091471201**
Option 2 ID : **4410091471199**
Option 3 ID : **4410091471198**
Option 4 ID : **4410091471200**

Comprehension:

Read the following passage and answer the questions based on it.

To avoid the various foolish opinions to which mankind is prone, no superhuman brain is required. A few simple rules will keep you free, not from all errors, but from silly errors. If the matter is one that can be settled by observation, make the observation yourself. Aristotle could have avoided the mistake of thinking that women have fewer teeth than man, by the simple device of asking Mrs. Aristotle to keep her mouth open while he counted. Thinking that you know when in fact you do not is a bad mistake, to which we are all prone. I believe myself that hedgehogs eat black beetles, because I have been told that they do; but if I was writing a book on the habits of hedgehogs, I should not commit myself until I had been one enjoying this diet. Aristotle, however, was less cautious. Ancient and medieval writers know all about unicorns and salamanders; not one of them thought it necessary to avoid dogmatic statements about them because he had never seen one of them.

SubQuestion No : 20

Q.20 What is the central theme of the passage?

Ans

✗ 1. The value of good education

✗ 2. The importance of skepticism

✓ 3. The importance of empirical observation over assumption

✗ 4. Highlighting the mistakes made by historical figures

Question ID : **441009376412**
Option 1 ID : **4410091471203**
Option 2 ID : **4410091471205**
Option 3 ID : **4410091471202**
Option 4 ID : **4410091471204**

Section : **Test of Hindi Language and Comprehension**

Q.1 'अनर्थ' शब्द के अनेक अर्थों में से निम्न में से एक अर्थ है –

Ans

✗ 1. बेकार

✗ 2. आज्ञा

✓ 3. अनुचित अर्थ

✗ 4. खराब

Question ID : **441009352821**
Option 1 ID : **4410091377512**
Option 2 ID : **4410091377511**
Option 3 ID : **4410091377513**
Option 4 ID : **4410091377514**

Q.2 निम्न में से सर्वोचित क्रिया शब्द से वाक्य का रिक्त स्थान पूर्ण करें--

अपने माता-पिता का ..... मानो इसी में लाभ है।

Ans

✓ 1. कहना

✗ 2. करना

✗ 3. समझना

✗ 4. काम

Question ID : **441009376674**
Option 1 ID : **4410091472159**
Option 2 ID : **4410091472158**
Option 3 ID : **4410091472160**
Option 4 ID : **4410091472161**

Q.3 उचित कारक चिह्न से दिए गए वाक्य का रिक्त स्थान पूर्ण करें—

हरिदास साँझ ..... सैर करने के लिए घर से निकल जाते थे।

Ans
✔ 1. को
✘ 2. द्वारा
✘ 3. ने
✘ 4. पर

Question ID : **441009376677**
Option 1 ID : **4410091472171**
Option 2 ID : **4410091472172**
Option 3 ID : **4410091472173**
Option 4 ID : **4410091472170**

Q.4 'शूर' का विलोम शब्द है-1652

Ans
✘ 1. असुर
✘ 2. वीर
✔ 3. कायर
✘ 4. दंभी

Question ID : **441009441932**
Option 1 ID : **4410091726409**
Option 2 ID : **4410091726410**
Option 3 ID : **4410091726411**
Option 4 ID : **4410091726412**

Q.5 दिए गए वाक्य के किस शब्द की वर्तनी अशुद्ध है ?
'आज देवेश की दुकान का उदघाटन है ।

Ans
✔ 1. उदघाटन
✘ 2. दुकान
✘ 3. आज
✘ 4. देवेश

Question ID : **441009376919**
Option 1 ID : **4410091473055**
Option 2 ID : **4410091473057**
Option 3 ID : **4410091473054**
Option 4 ID : **4410091473056**

Q.6 निम्नलिखित लोकोक्ति का सही अर्थ पहचानें।
छप्पर पर फूंस नहीं , ड्योढ़ी पर नाच

Ans
✘ 1. दूसरों से उधर लेना
✘ 2. घर में दुख और बाहर खुशी दिखाना
✘ 3. शाम को नाच-गाना करना
✔ 4. दिखावी ठाट-बाट और वास्तव में कुछ नहीं

Question ID : **441009376879**
Option 1 ID : **4410091472897**
Option 2 ID : **4410091472896**
Option 3 ID : **4410091472895**
Option 4 ID : **4410091472894**

QuickSarkari.com | WhatsApp Channel | Telegram: t.me/quick_sarkari

Q.7 निम्न में से तद्भव शब्द है--

Ans
✔ 1. खीर
✘ 2. कोण
✘ 3. कुष्ठ
✘ 4. ग्राहक

Question ID : **441009376913**
Option 1 ID : **4410091473030**
Option 2 ID : **4410091473032**
Option 3 ID : **4410091473031**
Option 4 ID : **4410091473033**

Q.8 निम्नलिखित में से किस विकल्प के दोनों शब्द आपस में पर्यायवाची नहीं हैं?

Ans
✘ 1. बेसुध-मूर्छित
✔ 2. नश्वर-भद्दा
✘ 3. अचेत-बेहोश
✘ 4. संज्ञाहीन-निश्चेष्ट

Question ID : **441009376974**
Option 1 ID : **4410091473275**
Option 2 ID : **4410091473274**
Option 3 ID : **4410091473276**
Option 4 ID : **4410091473277**

Q.9 राधा .....खाना बना लिया ।
उपरोक्त दिए गए वाक्य में रिक्त स्थान की पूर्ति के लिए उचित कारक शब्द का चयन करें –

Ans
✔ 1. ने
✘ 2. से
✘ 3. की
✘ 4. में

Question ID : **441009352743**
Option 1 ID : **4410091377235**
Option 2 ID : **4410091377238**
Option 3 ID : **4410091377237**
Option 4 ID : **4410091377236**

Q.10 निम्नलिखित अव्यवस्थित वाक्यों को उचित क्रम में व्यवस्थित करके एक अर्थपूर्ण अनुच्छेद बनाएँ प्रथम और अंतिम (1 और 6) वाक्य उचित क्रम में हैं –
1 -मानव जीवन तभी सार्थक होता है।
2- जब व्यक्ति साहस और आत्मविश्वास के साथ उसे व्यतीत करता है।
3- ऐसा करने से वह असफल होने पर भी कभी निराश नहीं होता है ।
4-अंतत : सफलता प्राप्त करता है ।
5-बल्कि नई उमंग, नए विश्वास व नए साहस से फिर प्रयत्न करता है।
6- समाज व राष्ट्र का आदर्श बनता है ।

Ans
✘ 1. 1, 5, 3, 2, 4, 6
✔ 2. 1, 2,3, 5, 4, 6
✘ 3. 1, 5, 4, 2, 3, 6
✘ 4. 1, 5, 3, 4, 2, 6

Question ID : **441009473706**
Option 1 ID : **4410091850237**
Option 2 ID : **4410091850239**
Option 3 ID : **4410091850238**
Option 4 ID : **4410091850240**

QuickSarkari.com | WhatsApp Channel | Telegram: t.me/quick_sarkari

Q.11 दिए गए वाक्यांश के लिए सार्थक शब्द बताएं -
'नित्य दीन-दुखियों को भोजन देने की व्यवस्था'

Ans
✔ 1. सदावर्त
✘ 2. संविदा
✘ 3. सप्ताह
✘ 4. सत्याग्रह

Question ID : **441009376700**
Option 1 ID : **4410091472265**
Option 2 ID : **4410091472264**
Option 3 ID : **4410091472263**
Option 4 ID : **4410091472262**

Q.12 'हवा हो जाना' मुहावरे का अर्थ निम्न में से है--

Ans
✘ 1. डर जाना
✔ 2. भाग जाना
✘ 3. दुर्बल होना
✘ 4. तेज़ चलना

Question ID : **441009195648**
Option 1 ID : **441009770422**
Option 2 ID : **441009770421**
Option 3 ID : **441009770420**
Option 4 ID : **441009770419**

Q.13 'मर जाने की कामना'
उपरोक्त दिए गए वाक्यांश के लिए एक सार्थक शब्द का चुनाव करें –

Ans
✘ 1. मृत्युंजय
✘ 2. मुक्तहस्त
✘ 3. मरणासन्न
✔ 4. मुमूर्षा

Question ID : **441009352747**
Option 1 ID : **4410091377251**
Option 2 ID : **4410091377253**
Option 3 ID : **4410091377254**
Option 4 ID : **4410091377252**

Q.14 इस खेत का कितना लागान है ?
उपरोक्त दिए गए वाक्य के किस भाग में वर्तनी संबंधी अशुद्धि है ?

Ans
✔ 1. लागान
✘ 2. कितना
✘ 3. इस
✘ 4. खेत का

Question ID : **441009352831**
Option 1 ID : **4410091377554**
Option 2 ID : **4410091377553**
Option 3 ID : **4410091377551**
Option 4 ID : **4410091377552**

QuickSarkari.com | WhatsApp Channel | Telegram: t.me/quick_sarkari

Q.15 निम्नलिखित वाक्यों के सही क्रम की पहचान करें जिससे यह एक सार्थक गद्यांश बन जाए-
यह मेरे लिए मुश्किल भी नहीं था
एक बार मुझे उपवास का शौक चढ़ा
मैं छः दिन बिना खाए पिए रहा
लेकिन उससे कम भूखा मैं छठीं रात को था
दूसरे दिन मैं अधिक भूखा था

Ans
✗ 1. 3, 2, 1, 4, 5
✗ 2. 3, 5, 2, 1, 4
✓ 3. 2, 1, 3, 5, 4
✗ 4. 2, 4, 5, 3, 1

Question ID : **441009473705**
Option 1 ID : **4410091850233**
Option 2 ID : **4410091850235**
Option 3 ID : **4410091850234**
Option 4 ID : **4410091850236**

Comprehension:

दिए गए गद्यांश को ध्यानपूर्वक पढ़कर पूछे गए प्रश्नों के सर्वाधिक उपयुक्त उत्तर वाले विकल्प चुनकर लिखिए–

राज कपूर ने एक अच्छे और सच्चे मित्र की हैसियत से शैलेंद्र को फ़िल्म की असफलता के खतरों से आगाह भी किया। पर वह तो एक आदर्शवादी भावुक कवि था, जिसे अपार संपत्ति और यश तक की इतनी कामना नहीं थी, जितनी आत्म-संतुष्टि के सुख की अभिलाषा थी। 'तीसरी कसम' कितनी ही महान् फ़िल्म क्यों न रही हो, लेकिन यह दुःखद सत्य है कि इसे प्रदर्शित करने के लिए बमुश्किल वितरक मिले। बावजूद इसके कि 'तीसरी कसम' में राज कपूर और वहीदा रहमान जैसे नामजद सितारे थे, शंकर-जयकिशन का संगीत था, जिनकी लोकप्रियता उन दिनों सातवें आसमान पर थी और उसके गीत भी फ़िल्म के प्रदर्शन के पूर्व ही बेहद लोकप्रिय हो चुके थे, लेकिन इस फ़िल्म को खरीदने वाला कोई नहीं था। दरअसल इस फ़िल्म की संवेदना किसी दो से चार बनाने का गणित जानने वाले की समझ से परे थी। उसमें रची-बसी करुणा तराजू पर तौली जा सकने वाली चीज़ नहीं थी।

SubQuestion No : 16

Q.16 "उसमें रची-बसी करुणा तराजू पर तौली जा सकने वाली चीज़ नहीं थी।" पंक्ति का आशय है -

Ans
✗ 1. यह करुणा अर्थ का विषय थी, नाप-तोल का नहीं
✓ 2. यह करुणा अनुभूति का विषय थी, नाप -तोल का नहीं
✗ 3. यह करुणा बुद्धि का विषय थी, नाप-तोल का नहीं
✗ 4. यह करुणा व्यवहारिकता का विषय थी, नाप-तोल का नहीं

Question ID : **441009352779**
Option 1 ID : **4410091377365**
Option 2 ID : **4410091377363**
Option 3 ID : **4410091377364**
Option 4 ID : **4410091377366**

QuickSarkari.com | WhatsApp Channel | Telegram: t.me/quick_sarkari

Comprehension:

दिए गए गद्यांश को ध्यानपूर्वक पढ़कर पूछे गए प्रश्नों के सर्वाधिक उपयुक्त उत्तर वाले विकल्प चुनकर लिखिए–

राज कपूर ने एक अच्छे और सच्चे मित्र की हैसियत से शैलेंद्र को फ़िल्म की असफलता के खतरों से आगाह भी किया । पर वह तो एक आदर्शवादी भावुक कवि था, जिसे अपार संपत्ति और यश तक की इतनी कामना नहीं थी, जितनी आत्म-संतुष्टि के सुख की अभिलाषा थी । 'तीसरी कसम' कितनी ही महान् फ़िल्म क्यों न रही हो, लेकिन यह दुःखद सत्य है कि इसे प्रदर्शित करने के लिए बमुश्किल वितरक मिले । बावजूद इसके कि 'तीसरी कसम' में राज कपूर और वहीदा रहमान जैसे नामजद सितारे थे, शंकर-जयकिशन का संगीत था, जिनकी लोकप्रियता उन दिनों सातवें आसमान पर थी और उसके गीत भी फ़िल्म के प्रदर्शन के पूर्व ही बेहद लोकप्रिय हो चुके थे, लेकिन इस फ़िल्म को खरीदने वाला कोई नहीं था । दरअसल इस फ़िल्म की संवेदना किसी दो से चार बनाने का गणित जानने वाले की समझ से परे थी । उसमें रची-बसी करुणा तराजू पर तौली जा सकने वाली चीज़ नहीं थी ।

SubQuestion No : 17

Q.17 राज कपूर ने शैलेंद्र को किस बात से आगाह किया था ?

Ans

✗ 1. फ़िल्म से कोई आर्थिक लाभ न मिलने वाली बात से

✗ 2. फ़िल्म निर्माण में होने वाली परेशानियों से

✗ 3. फ़िल्म का किसी को समझ न आने वाली बात से

✓ 4. फ़िल्म की संभावित असफलता के खतरों से

Question ID : **441009352775**
Option 1 ID : **4410091377348**
Option 2 ID : **4410091377349**
Option 3 ID : **4410091377347**
Option 4 ID : **4410091377350**

Comprehension:

दिए गए गद्यांश को ध्यानपूर्वक पढ़कर पूछे गए प्रश्नों के सर्वाधिक उपयुक्त उत्तर वाले विकल्प चुनकर लिखिए–

राज कपूर ने एक अच्छे और सच्चे मित्र की हैसियत से शैलेंद्र को फ़िल्म की असफलता के खतरों से आगाह भी किया । पर वह तो एक आदर्शवादी भावुक कवि था, जिसे अपार संपत्ति और यश तक की इतनी कामना नहीं थी, जितनी आत्म-संतुष्टि के सुख की अभिलाषा थी । 'तीसरी कसम' कितनी ही महान् फ़िल्म क्यों न रही हो, लेकिन यह दुःखद सत्य है कि इसे प्रदर्शित करने के लिए बमुश्किल वितरक मिले । बावजूद इसके कि 'तीसरी कसम' में राज कपूर और वहीदा रहमान जैसे नामजद सितारे थे, शंकर-जयकिशन का संगीत था, जिनकी लोकप्रियता उन दिनों सातवें आसमान पर थी और उसके गीत भी फ़िल्म के प्रदर्शन के पूर्व ही बेहद लोकप्रिय हो चुके थे, लेकिन इस फ़िल्म को खरीदने वाला कोई नहीं था । दरअसल इस फ़िल्म की संवेदना किसी दो से चार बनाने का गणित जानने वाले की समझ से परे थी । उसमें रची-बसी करुणा तराजू पर तौली जा सकने वाली चीज़ नहीं थी ।

SubQuestion No : 18

Q.18 शैलेंद्र को किस प्रकार का व्यक्ति माना जा सकता है ?

Ans

✗ 1. आत्म-संतुष्ट व्यक्ति

✗ 2. प्रसिद्ध गीतकार

✗ 3. कुशल फ़िल्म निर्माता

✓ 4. आदर्शवादी भावुक कवि

Question ID : **441009352776**
Option 1 ID : **4410091377354**
Option 2 ID : **4410091377352**
Option 3 ID : **4410091377351**
Option 4 ID : **4410091377353**

QuickSarkari

Comprehension:

दिए गए गद्यांश को ध्यानपूर्वक पढ़कर पूछे गए प्रश्नों के सर्वाधिक उपयुक्त उत्तर वाले विकल्प चुनकर लिखिए–

राज कपूर ने एक अच्छे और सच्चे मित्र की हैसियत से शैलेंद्र को फ़िल्म की असफलता के खतरों से आगाह भी किया । पर वह तो एक आदर्शवादी भावुक कवि था, जिसे अपार संपत्ति और यश तक की इतनी कामना नहीं थी, जितनी आत्म-संतुष्टि के सुख की अभिलाषा थी । 'तीसरी कसम' कितनी ही महान् फ़िल्म क्यों न रही हो, लेकिन यह दुःखद सत्य है कि इसे प्रदर्शित करने के लिए बमुश्किल वितरक मिले । बावजूद इसके कि 'तीसरी कसम' में राज कपूर और वहीदा रहमान जैसे नामजद सितारे थे, शंकर-जयकिशन का संगीत था, जिनकी लोकप्रियता उन दिनों सातवें आसमान पर थी और उसके गीत भी फ़िल्म के प्रदर्शन के पूर्व ही बेहद लोकप्रिय हो चुके थे, लेकिन इस फ़िल्म को खरीदने वाला कोई नहीं था । दरअसल इस फ़िल्म की संवेदना किसी दो से चार बनाने का गणित जानने वाले की समझ से परे थी । उसमें रची-बसी करुणा तराजू पर तौली जा सकने वाली चीज़ नहीं थी ।

SubQuestion No : 19

Q.19 गद्यांश में आई पंक्ति - 'दो से चार बनाने का गणित' - का अर्थ है -

Ans

✗ 1. अधिक-से-अधिक धन कमाना

✗ 2. संख्याओं को गुणा करने का हिसाब

✗ 3. संख्याओं को जोड़ने का हिसाब

✓ 4. अधिक-से-अधिक मुनाफ़ा कमाना

Question ID : **441009352778**
Option 1 ID : **4410091377359**
Option 2 ID : **4410091377362**
Option 3 ID : **4410091377360**
Option 4 ID : **4410091377361**

Comprehension:

दिए गए गद्यांश को ध्यानपूर्वक पढ़कर पूछे गए प्रश्नों के सर्वाधिक उपयुक्त उत्तर वाले विकल्प चुनकर लिखिए–

राज कपूर ने एक अच्छे और सच्चे मित्र की हैसियत से शैलेंद्र को फ़िल्म की असफलता के खतरों से आगाह भी किया । पर वह तो एक आदर्शवादी भावुक कवि था, जिसे अपार संपत्ति और यश तक की इतनी कामना नहीं थी, जितनी आत्म-संतुष्टि के सुख की अभिलाषा थी । 'तीसरी कसम' कितनी ही महान् फ़िल्म क्यों न रही हो, लेकिन यह दुःखद सत्य है कि इसे प्रदर्शित करने के लिए बमुश्किल वितरक मिले । बावजूद इसके कि 'तीसरी कसम' में राज कपूर और वहीदा रहमान जैसे नामजद सितारे थे, शंकर-जयकिशन का संगीत था, जिनकी लोकप्रियता उन दिनों सातवें आसमान पर थी और उसके गीत भी फ़िल्म के प्रदर्शन के पूर्व ही बेहद लोकप्रिय हो चुके थे, लेकिन इस फ़िल्म को खरीदने वाला कोई नहीं था । दरअसल इस फ़िल्म की संवेदना किसी दो से चार बनाने का गणित जानने वाले की समझ से परे थी । उसमें रची-बसी करुणा तराजू पर तौली जा सकने वाली चीज़ नहीं थी ।

SubQuestion No : 20

Q.20 'तीसरी कसम' फ़िल्म का दुःखद सत्य क्या था ?

Ans

✗ 1. लोगों का फ़िल्म को न समझ पाना

✗ 2. फ़िल्म का रुपहले पर्दे पर न पहुँच पाना

✗ 3. फ़िल्म को प्रसिद्धि न मिल पाना

✓ 4. फ़िल्म के लिए खरीददार का न मिलना

Question ID : **441009352777**
Option 1 ID : **4410091377356**
Option 2 ID : **4410091377357**
Option 3 ID : **4410091377358**
Option 4 ID : **4410091377355**

Section : **Discipline1**

Q.1 Which documentation emphasises the complaints of the patient?

Ans
✔ 1. Problem-oriented charting
✘ 2. Nursing Kardex
✘ 3. Narrative charting
✘ 4. Pie charting

Question ID : **441009426976**
Option 1 ID : **4410091667440**
Option 2 ID : **4410091667438**
Option 3 ID : **4410091667439**
Option 4 ID : **4410091667441**

Q.2 Approximately _____ needs to be pressed to palpate underlying abdominal organs while doing deep palpation of the abdomen.

Ans
✔ 1. 4 cms
✘ 2. 8 cms
✘ 3. 10 cms
✘ 4. 2 cms

Question ID : **44100946638**
Option 1 ID : **441009185700**
Option 2 ID : **441009185701**
Option 3 ID : **441009185702**
Option 4 ID : **441009185699**

Q.3 Which of the following cells are responsible for the formation of the blood-brain barrier in the central nervous system?

Ans
✔ 1. Astrocytes
✘ 2. Oligodendrocytes
✘ 3. Ependymal cells
✘ 4. Microglia

Question ID : **441009889511**
Option 1 ID : **4410093511999**
Option 2 ID : **4410093511998**
Option 3 ID : **4410093512001**
Option 4 ID : **4410093512000**

Q.4 What is the highest priority nursing intervention for a patient with decreased skin turgor and urine output?

Ans
✘ 1. Monitor Sr. albumin and protein level
✔ 2. Administer IV fluids/oral fluids
✘ 3. Administer Inj. Lasix as per order
✘ 4. Encourage them to take salt restricted diet

Question ID : **441009427459**
Option 1 ID : **4410091669372**
Option 2 ID : **4410091669373**
Option 3 ID : **4410091669370**
Option 4 ID : **4410091669371**

QuickSarkari.com | WhatsApp Channel | Telegram: t.me/quick_sarkari

Q.5 A nurse's first action after an electrical fire in a patient's room should be to:

Ans
✗ 1. confine the fire by closing all the doors
✓ 2. remove all the patients in immediate danger
✗ 3. activate fire alarm
✗ 4. extinguish the fire by using fire extinguishers

Question ID : **441009426762**
Option 1 ID : **4410091666583**
Option 2 ID : **4410091666585**
Option 3 ID : **4410091666582**
Option 4 ID : **4410091666584**

Q.6 In the _____ stage of the nursing process, a nurse sets short-term and long-term goals of care and a plan of care for the patient's desired outcome.

Ans
✗ 1. Implementation
✓ 2. Planning
✗ 3. Assessment
✗ 4. Evaluation

Question ID : **44100946727**
Option 1 ID : **441009186051**
Option 2 ID : **441009186050**
Option 3 ID : **441009186049**
Option 4 ID : **441009186052**

Q.7 A person suffering from heat exhaustion should be:

Ans
✗ 1. wrapped in blankets
✗ 2. given salty snacks
✗ 3. immersed in cold water
✓ 4. moved to a cool place and given fluids

Question ID : **441009427305**
Option 1 ID : **4410091668757**
Option 2 ID : **4410091668754**
Option 3 ID : **4410091668755**
Option 4 ID : **4410091668756**

Q.8 The nurse measures the central adiposity of a child to identify which of the following nutritional problems?

Ans
✗ 1. Protein-energy malnutrition
✗ 2. Neurological disorders
✓ 3. Childhood obesity
✗ 4. Cardiovascular disorders

Question ID : **441009427359**
Option 1 ID : **4410091668971**
Option 2 ID : **4410091668972**
Option 3 ID : **4410091668970**
Option 4 ID : **4410091668973**

QuickSarkari.com | WhatsApp Channel | Telegram: t.me/quick_sarkari

Q.9 Medication reconciliation refers to:

Ans
✔ 1. the list of medications the patient is taking
✘ 2. antibiotics taken by the patient
✘ 3. high alert medications taken by the patient
✘ 4. medications patient had taken during childhood

Question ID : **441009427447**
Option 1 ID : **4410091669322**
Option 2 ID : **4410091669324**
Option 3 ID : **4410091669325**
Option 4 ID : **4410091669323**

Q.10 The normal reaction of the urine specimen of an adult is:

Ans
✘ 1. buffer
✘ 2. catalyst
✔ 3. acidic
✘ 4. alkaline

Question ID : **441009427312**
Option 1 ID : **4410091668784**
Option 2 ID : **4410091668785**
Option 3 ID : **4410091668782**
Option 4 ID : **4410091668783**

Q.11 _____ is a musical or a drum-like sound heard over the air-filled stomach.

Ans
✘ 1. Resonance
✘ 2. Flat
✔ 3. Tympany
✘ 4. Hyper-resonance

Question ID : **441009427442**
Option 1 ID : **4410091669302**
Option 2 ID : **4410091669304**
Option 3 ID : **4410091669303**
Option 4 ID : **4410091669305**

Q.12 When a patient has complaints of passing black tarry stool, it is:

Ans
✘ 1. diarrhoea
✔ 2. melena
✘ 3. steatorrhea
✘ 4. bowel incontinence

Question ID : **441009427477**
Option 1 ID : **4410091669444**
Option 2 ID : **4410091669443**
Option 3 ID : **4410091669442**
Option 4 ID : **4410091669445**

QuickSarkari.com | WhatsApp Channel | Telegram: t.me/quick_sarkari

Q.13 The act of a patient using multiple drugs, with or without prescription, to treat sickness is referred to as:

Ans
✗ 1. misuse of medications
✓ 2. polypharmacy
✗ 3. noncompliance
✗ 4. over-the-counter medication

Question ID : **441009427318**
Option 1 ID : **4410091668807**
Option 2 ID : **4410091668806**
Option 3 ID : **4410091668809**
Option 4 ID : **4410091668808**

Q.14 The type of ocular muscle used for the rotation of eyeballs upward and outward is called:

Ans
✗ 1. superior oblique
✓ 2. inferior oblique
✗ 3. inferior rectus
✗ 4. medial rectus

Question ID : **441009426942**
Option 1 ID : **4410091667304**
Option 2 ID : **4410091667305**
Option 3 ID : **4410091667303**
Option 4 ID : **4410091667302**

Q.15 A pale white or grey coloured stool passed by a patient indicates:

Ans
✗ 1. excess of mucus secretion
✓ 2. absence of bile in the intestine
✗ 3. pus in the intestine
✗ 4. excess of bile secretion

Question ID : **441009427148**
Option 1 ID : **4410091668127**
Option 2 ID : **4410091668126**
Option 3 ID : **4410091668129**
Option 4 ID : **4410091668128**

Q.16 When a doctor prescribes a medicine which is to be given only when a patient requires, the prescription has _____.

Ans
✗ 1. one-time orders
✗ 2. now orders
✓ 3. PRN orders
✗ 4. stat orders

Question ID : **44100946625**
Option 1 ID : **441009185647**
Option 2 ID : **441009185650**
Option 3 ID : **441009185649**
Option 4 ID : **441009185648**

QuickSarkari.com | WhatsApp Channel | Telegram: t.me/quick_sarkari

Q.17 Which part of the spleen has T and B-lymphocytes that activate during infection?

Ans
- ✗ 1. Red pulp
- ✗ 2. Capsule
- ✓ 3. White pulp
- ✗ 4. Trabeculae

Question ID : **441009426928**
Option 1 ID : **4410091667248**
Option 2 ID : **4410091667247**
Option 3 ID : **4410091667249**
Option 4 ID : **4410091667246**

Q.18 Which cranial nerve stimulation causes ciliary muscle contraction?

Ans
- ✓ 1. Oculomotor
- ✗ 2. Optic
- ✗ 3. Trigeminal
- ✗ 4. Abducent

Question ID : **441009427245**
Option 1 ID : **4410091668514**
Option 2 ID : **4410091668515**
Option 3 ID : **4410091668516**
Option 4 ID : **4410091668517**

Q.19 Which of the following nerves is involved in the sensation of taste on the tongue?

Ans
- ✗ 1. Trochlear nerve
- ✗ 2. Trigeminal nerve
- ✓ 3. Glossopharyngeal nerve
- ✗ 4. Hypoglossal nerve

Question ID : **441009427333**
Option 1 ID : **4410091668869**
Option 2 ID : **4410091668867**
Option 3 ID : **4410091668866**
Option 4 ID : **4410091668868**

Q.20 An abnormal excessive convex curvature of the spine is referred to as:

Ans
- ✗ 1. torticollis
- ✗ 2. scoliosis
- ✗ 3. lordosis
- ✓ 4. kyphosis

Question ID : **441009426973**
Option 1 ID : **4410091667426**
Option 2 ID : **4410091667427**
Option 3 ID : **4410091667428**
Option 4 ID : **4410091667429**

Section : **Discipline2**

QuickSarkari.com | WhatsApp Channel | Telegram: t.me/quick_sarkari

Q.1 Which part of the ear is responsible for equalising pressure between the middle ear and the external environment, and can be affected during altitude change?

Ans
- ✔ 1. Eustachian tube
- ✘ 2. Tympanic membrane
- ✘ 3. External auditory meatus
- ✘ 4. Oval window

Question ID : **441009889513**
Option 1 ID : **4410093512008**
Option 2 ID : **4410093512007**
Option 3 ID : **4410093512006**
Option 4 ID : **4410093512009**

Q.2 Upon examination, a patient is found to be pale and diaphoretic, with a heart rate of 130 beats/min, decreased cardiac output and blood pressure of 50/40 mmHg. Which type of shock should the nurse suspect?

Ans
- ✘ 1. Cardiogenic shock
- ✔ 2. Hypovolemic shock
- ✘ 3. Neurogenic shock
- ✘ 4. Anaphylactic shock

Question ID : **441009427458**
Option 1 ID : **4410091669366**
Option 2 ID : **4410091669368**
Option 3 ID : **4410091669367**
Option 4 ID : **4410091669369**

Q.3 The amount of air passing into and out of the lungs during each breath is called:

Ans
- ✘ 1. residual volume
- ✘ 2. inspiratory residual volume
- ✔ 3. tidal volume
- ✘ 4. vital capacity

Question ID : **441009426940**
Option 1 ID : **4410091667295**
Option 2 ID : **4410091667297**
Option 3 ID : **4410091667296**
Option 4 ID : **4410091667294**

Q.4 When there is an acid base imbalance, the _____ acts fast to regulate the acid base balance.

Ans
- ✘ 1. Cardiac system
- ✘ 2. Renin-angiotensin system
- ✔ 3. Buffer system
- ✘ 4. Neurosystem

Question ID : **44100948536**
Option 1 ID : **441009193458**
Option 2 ID : **441009193456**
Option 3 ID : **441009193457**
Option 4 ID : **441009193459**

QuickSarkari.com | WhatsApp Channel | Telegram: t.me/quick_sarkari

Q.5 A type of joint that is restricted to flexion and extension of the articulated end is called:

Ans
- ✗ 1. ball and socket
- ✓ 2. hinge
- ✗ 3. gliding
- ✗ 4. pivot

Question ID : **441009426941**
Option 1 ID : **4410091667298**
Option 2 ID : **4410091667299**
Option 3 ID : **4410091667300**
Option 4 ID : **4410091667301**

Q.6 At which anatomical point does the trachea divide into left and right primary bronchi?

Ans
- ✓ 1. Carina
- ✗ 2. Sternal notch
- ✗ 3. Supra sternum
- ✗ 4. Hilum

Question ID : **441009426924**
Option 1 ID : **4410091667231**
Option 2 ID : **4410091667232**
Option 3 ID : **4410091667233**
Option 4 ID : **4410091667230**

Q.7 The molecules that stimulate immune response for antibody production in the body are called _____.

Ans
- ✓ 1. antigens
- ✗ 2. enzymes
- ✗ 3. structural proteins
- ✗ 4. hormonal proteins

Question ID : **44100946538**
Option 1 ID : **441009185305**
Option 2 ID : **441009185303**
Option 3 ID : **441009185304**
Option 4 ID : **441009185306**

Q.8 Antibody mediated cytotoxic hypersensitivity is otherwise known as what type of hypersensitivity?

Ans
- ✓ 1. Type II hypersensitivity
- ✗ 2. Type IV hypersensitivity
- ✗ 3. Type III hypersensitivity
- ✗ 4. Type I hypersensitivity

Question ID : **441009427502**
Option 1 ID : **4410091669543**
Option 2 ID : **4410091669545**
Option 3 ID : **4410091669544**
Option 4 ID : **4410091669542**

QuickSarkari.com | WhatsApp Channel | Telegram: t.me/quick_sarkari

Q.9 _____ is used to remove smaller tumours of the pituitary gland.

Ans
✗ 1. The endovascular surgical approach
✓ 2. The transsphenoidal surgical approach
✗ 3. Craniotomy
✗ 4. The laproscopic surgical approach

Question ID : **441009427110**
Option 1 ID : **4410091667976**
Option 2 ID : **4410091667974**
Option 3 ID : **4410091667975**
Option 4 ID : **4410091667977**

Q.10 Ventilation perfusion ratio is the ratio of:

Ans
✗ 1. pulmonary ventilation to pulmonary blood flow
✗ 2. expired air volume to intrapulmonary pressure
✓ 3. alveolar ventilation to pulmonary blood flow
✗ 4. minute ventilation to pulmonary capillary pressure

Question ID : **441009889601**
Option 1 ID : **4410093512358**
Option 2 ID : **4410093512361**
Option 3 ID : **4410093512360**
Option 4 ID : **4410093512359**

Q.11 Cryptorchidism is also known as _____.

Ans
✗ 1. poorly developed prostate
✗ 2. poorly developed areola
✓ 3. undescended testis
✗ 4. undescended clitoris

Question ID : **44100964838**
Option 1 ID : **441009258322**
Option 2 ID : **441009258320**
Option 3 ID : **441009258321**
Option 4 ID : **441009258319**

Q.12 What shape is a trophozoite?

Ans
✗ 1. Oval shaped
✗ 2. Wedge shaped
✓ 3. Heart shaped
✗ 4. Circular shaped

Question ID : **441009427358**
Option 1 ID : **4410091668967**
Option 2 ID : **4410091668969**
Option 3 ID : **4410091668966**
Option 4 ID : **4410091668968**

QuickSarkari.com | WhatsApp Channel | Telegram: t.me/quick_sarkari

Q.13 Pasteurisation, boiling and tyndallisation are examples of sterilisation by:

Ans
✗ 1. dry heat
✓ 2. moist heat
✗ 3. radiation
✗ 4. filtration

Question ID : **441009427532**
Option 1 ID : **4410091669663**
Option 2 ID : **4410091669665**
Option 3 ID : **4410091669662**
Option 4 ID : **4410091669664**

Q.14 Which of the following are accessory organs of the eye which have the capacity of moving the eye in almost any direction?

Ans
✗ 1. Eyebrows
✓ 2. Extrinsic eye muscles
✗ 3. Eye balls
✗ 4. Eyelids

Question ID : **44100946523**
Option 1 ID : **441009185244**
Option 2 ID : **441009185246**
Option 3 ID : **441009185245**
Option 4 ID : **441009185243**

Q.15 Which of the following clinical manifestations is typical of a hypothyroidism patient?

Ans
✓ 1. Constipation
✗ 2. Anorexia
✗ 3. Elevated blood pressure
✗ 4. Fine hair

Question ID : **441009426994**
Option 1 ID : **4410091667513**
Option 2 ID : **4410091667512**
Option 3 ID : **4410091667510**
Option 4 ID : **4410091667511**

Q.16 Lepromin test is done to rule out:

Ans
✗ 1. tetanus bacillus
✗ 2. salmonella typhi
✗ 3. mycobacterium tuberculosis
✓ 4. leprosy

Question ID : **441009426933**
Option 1 ID : **4410091667269**
Option 2 ID : **4410091667268**
Option 3 ID : **4410091667267**
Option 4 ID : **4410091667266**

QuickSarkari.com | WhatsApp Channel | Telegram: t.me/quick_sarkari

Q.17 Which of the following muscles is used during the flexion of hip joint?

Ans
✗ 1. Gluteus medius
✗ 2. Gluteus maxims
✓ 3. Adductor group
✗ 4. Psoas

Question ID : **441009427198**
Option 1 ID : **4410091668327**
Option 2 ID : **4410091668328**
Option 3 ID : **4410091668329**
Option 4 ID : **4410091668326**

Q.18 Erythropoietin is secreted from _____.

Ans
✗ 1. pancreas
✗ 2. spleen
✓ 3. kidneys
✗ 4. liver

Question ID : **441009426693**
Option 1 ID : **4410091666306**
Option 2 ID : **4410091666309**
Option 3 ID : **4410091666308**
Option 4 ID : **4410091666307**

Q.19 Urinary output of less than 400 ml per day in an adult is termed as:

Ans
✓ 1. oliguria
✗ 2. nocturia
✗ 3. dysuria
✗ 4. anuria

Question ID : **441009426939**
Option 1 ID : **4410091667291**
Option 2 ID : **4410091667293**
Option 3 ID : **4410091667292**
Option 4 ID : **4410091667290**

Q.20 Who among the following identified mycobacterium tuberculosis, an acid-fast bacillus?

Ans
✗ 1. Robert Hook
✗ 2. Alexander
✓ 3. Robert Koch
✗ 4. Louis Pasteur

Question ID : **441009427250**
Option 1 ID : **4410091668536**
Option 2 ID : **4410091668535**
Option 3 ID : **4410091668537**
Option 4 ID : **4410091668534**

Section : **Discipline3**

Q.1 Which of the following is the primary mechanism behind the development of oedema in burn patients?

Ans
- ✗ 1. Increased IV fluids
- ✗ 2. Decreased urine output
- ✗ 3. Decreased cardiac output
- ✓ 4. Increased capillary permeability

Question ID : **441009427071**
Option 1 ID : **4410091667820**
Option 2 ID : **4410091667819**
Option 3 ID : **4410091667818**
Option 4 ID : **4410091667821**

Q.2 Who among the following was the first graduate psychiatric nurse?

Ans
- ✗ 1. Florence Nightingale
- ✗ 2. Dorothea Dix
- ✓ 3. Linda Richards
- ✗ 4. Hildegard Peplau

Question ID : **441009427036**
Option 1 ID : **4410091667678**
Option 2 ID : **4410091667680**
Option 3 ID : **4410091667681**
Option 4 ID : **4410091667679**

Q.3 A postnatal woman loses contact with reality and experiences delusions, hallucinations and disorientation. The nurse recognises that these manifestations are due to:

Ans
- ✗ 1. postpartum blues
- ✗ 2. postpartum depression
- ✓ 3. postpartum psychosis
- ✗ 4. borderline personality disorder

Question ID : **441009426821**
Option 1 ID : **4410091666818**
Option 2 ID : **4410091666819**
Option 3 ID : **4410091666821**
Option 4 ID : **4410091666820**

Q.4 Moon face with central obesity is seen in:

Ans
- ✗ 1. Turner syndrome
- ✗ 2. Down syndrome
- ✓ 3. Cushing's syndrome
- ✗ 4. Addison's disease

Question ID : **441009427111**
Option 1 ID : **4410091667981**
Option 2 ID : **4410091667980**
Option 3 ID : **4410091667979**
Option 4 ID : **4410091667978**

QuickSarkari.com | WhatsApp Channel | Telegram: t.me/quick_sarkari

Q.5 What is the correct place to fix the transducer to monitor central venous pressure?

Ans
✗ 1. Erb's point
✗ 2. Sternocleidomastoid muscle
✗ 3. Second intercostal space
✓ 4. Phlebostatic axis

Question ID : **441009426999**
Option 1 ID : **4410091667532**
Option 2 ID : **4410091667530**
Option 3 ID : **4410091667531**
Option 4 ID : **4410091667533**

Q.6 Delusion is a disorder of:

Ans
✗ 1. perception
✗ 2. judgement
✗ 3. intelligence
✓ 4. thought

Question ID : **441009426806**
Option 1 ID : **4410091666758**
Option 2 ID : **4410091666759**
Option 3 ID : **4410091666760**
Option 4 ID : **4410091666761**

Q.7 In _____ shock, initially the patient's skin is warm and later the patient has hypothermia.

Ans
✗ 1. anaphylactic
✗ 2. cardiogenic
✗ 3. hypovolemic
✓ 4. neurogenic

Question ID : **44100948541**
Option 1 ID : **441009193477**
Option 2 ID : **441009193478**
Option 3 ID : **441009193479**
Option 4 ID : **441009193476**

Q.8 A nurse is demonstrating a biochemical reaction by the phenylalanine deaminase test. The test will show positive by the detection of _____ colour.

Ans
✗ 1. red
✗ 2. yellow
✗ 3. pinkish-red
✓ 4. green

Question ID : **441009426964**
Option 1 ID : **4410091667390**
Option 2 ID : **4410091667391**
Option 3 ID : **4410091667393**
Option 4 ID : **4410091667392**

Quick Sarkari

Q.9 The following are the signs and symptoms of Obstructive Sleep Apnea (OSA), EXCEPT:

Ans
✗ 1. loud snoring
✓ 2. diuresis
✗ 3. frequent nocturnal awakening
✗ 4. excessive daytime sleepiness

Question ID : **441009426750**
Option 1 ID : **4410091666536**
Option 2 ID : **4410091666537**
Option 3 ID : **4410091666534**
Option 4 ID : **4410091666535**

Q.10 The benefit of using open-ended questions in verbal communication is to encourage _____.

Ans
✗ 1. very limited response
✗ 2. shorter conversations
✗ 3. focus on specific information only
✓ 4. detailed responses

Question ID : **441009427368**
Option 1 ID : **4410091669006**
Option 2 ID : **4410091669009**
Option 3 ID : **4410091669008**
Option 4 ID : **4410091669007**

Q.11 A nurse posted in the antenatal OPD found that the fundal height of a pregnant woman is palpated at the level of xiphisternum. What may be the approximate gestational week?

Ans
✗ 1. 12 weeks
✗ 2. 24 weeks
✗ 3. 28 weeks
✓ 4. 36 weeks

Question ID : **44100966527**
Option 1 ID : **441009264926**
Option 2 ID : **441009264927**
Option 3 ID : **441009264928**
Option 4 ID : **441009264929**

Q.12 Which of the following atypical antipsychotic medication is used in the treatment of psychotic symptoms?

Ans
✓ 1. Risperidone
✗ 2. Lithium
✗ 3. Chlorpromazine
✗ 4. Haloperidol

Question ID : **441009427371**
Option 1 ID : **4410091669021**
Option 2 ID : **4410091669019**
Option 3 ID : **4410091669020**
Option 4 ID : **4410091669018**

QuickSarkari.com | WhatsApp Channel | Telegram: t.me/quick_sarkari

Q.13 Which of the following is a primary factor that contributes to health disparities?

Ans
✗ 1. Standardised treatment protocol
✓ 2. Socio economic status
✗ 3. The 'Health for all' movement
✗ 4. Attitude of health care provider

Question ID : **441009426902**
Option 1 ID : **4410091667143**
Option 2 ID : **4410091667144**
Option 3 ID : **4410091667145**
Option 4 ID : **4410091667142**

Q.14 In which of the following conditions is synthetic levothyroxine drug used in the treatment?

Ans
✗ 1. Hyperthyroidism
✓ 2. Hypothyroidism
✗ 3. Hyperparathyroidism
✗ 4. Hypoparathyroidism

Question ID : **441009427466**
Option 1 ID : **4410091669401**
Option 2 ID : **4410091669400**
Option 3 ID : **4410091669399**
Option 4 ID : **4410091669398**

Q.15 An interdisciplinary approach used to provide health and social services with an oversight of the total health care plan by a nurse is referred to as _____.

Ans
✗ 1. curative care
✗ 2. primary care
✗ 3. preventive care
✓ 4. holistic care

Question ID : **441009427133**
Option 1 ID : **4410091668066**
Option 2 ID : **4410091668067**
Option 3 ID : **4410091668068**
Option 4 ID : **4410091668069**

Q.16 Which of the following is a characteristic of a lesion associated with psoriasis?

Ans
✗ 1. Clear, thin nail beds
✗ 2. Red-purplish scaly lesions
✓ 3. Silvery-white scaly patches
✗ 4. Oily and moist skin

Question ID : **441009427139**
Option 1 ID : **4410091668092**
Option 2 ID : **4410091668090**
Option 3 ID : **4410091668091**
Option 4 ID : **4410091668093**

QuickSarkari.com | WhatsApp Channel | Telegram: t.me/quick_sarkari

Q.17 During the assessment of pelvic grip in abdominal palpation, the nurse recognises that the head is big, not engaged and the cephalic prominence is felt on the side towards which the back lies. The nurse recognises the presentation to be:

Ans
- ✗ 1. breech
- ✗ 2. shoulder
- ✓ 3. face
- ✗ 4. vertex

Question ID : **441009426727**
Option 1 ID : **4410091666445**
Option 2 ID : **4410091666443**
Option 3 ID : **4410091666444**
Option 4 ID : **4410091666442**

Q.18 The nurse performs hand hygiene procedures to prevent the spread of infection. Which type of disinfection is she following?

Ans
- ✓ 1. Prophylactic disinfection
- ✗ 2. Concurrent disinfection
- ✗ 3. Terminal disinfection
- ✗ 4. Surgical disinfection

Question ID : **441009427356**
Option 1 ID : **4410091668960**
Option 2 ID : **4410091668958**
Option 3 ID : **4410091668959**
Option 4 ID : **4410091668961**

Q.19 In which of the following conditions does bleeding occur in the cerebral lobes, basal ganglia, thalamus and brain stem?

Ans
- ✗ 1. Subdural haemorrhage
- ✗ 2. Subarachnoid haemorrhage
- ✓ 3. Intracerebral haemorrhage
- ✗ 4. Epidural haemorrhage

Question ID : **441009427429**
Option 1 ID : **4410091669251**
Option 2 ID : **4410091669253**
Option 3 ID : **4410091669252**
Option 4 ID : **4410091669250**

Q.20 Which of the following is the chief clinical manifestation that a nurse would expect to note in the early stages of cataract formation?

Ans
- ✗ 1. Diplopia
- ✗ 2. Eye pain
- ✓ 3. Blurred vision
- ✗ 4. Floating spots

Question ID : **441009426986**
Option 1 ID : **4410091667479**
Option 2 ID : **4410091667480**
Option 3 ID : **4410091667478**
Option 4 ID : **4410091667481**

Section : **Discipline4**

QuickSarkari.com | WhatsApp Channel | Telegram: t.me/quick_sarkari

Q.1 The absence of breath sounds indicates:

Ans
- ✗ 1. pneumonia
- ✗ 2. bronchiolitis
- ✗ 3. bronchitis
- ✓ 4. pleural effusion

Question ID : **441009427396**
Option 1 ID : **4410091669120**
Option 2 ID : **4410091669119**
Option 3 ID : **4410091669118**
Option 4 ID : **4410091669121**

Q.2 All of the following are signs of good attachment during lactation, EXCEPT:

Ans
- ✗ 1. mouth wide open
- ✓ 2. lower lip turned inward
- ✗ 3. chin touching breast
- ✗ 4. more areola visible above than below the mouth

Question ID : **441009426849**
Option 1 ID : **4410091666932**
Option 2 ID : **4410091666930**
Option 3 ID : **4410091666931**
Option 4 ID : **4410091666933**

Q.3 When a baby is admitted in neonatal intensive care unit, the nurse should ensure primarily:

Ans
- ✗ 1. close monitoring
- ✗ 2. to restrict the mother
- ✗ 3. to feed the baby timely
- ✓ 4. to keep the baby warm

Question ID : **44100951348**
Option 1 ID : **441009204538**
Option 2 ID : **441009204537**
Option 3 ID : **441009204535**
Option 4 ID : **441009204536**

Q.4 Which of the following tests is used to measure the attention of the individual?

Ans
- ✓ 1. Digit span
- ✗ 2. Digit symbol
- ✗ 3. Comprehension
- ✗ 4. Arithmetic

Question ID : **441009426707**
Option 1 ID : **4410091666365**
Option 2 ID : **4410091666362**
Option 3 ID : **4410091666363**
Option 4 ID : **4410091666364**

QuickSarkari.com | WhatsApp Channel | Telegram: t.me/quick_sarkari

Q.5 The function of fallopian tubes is to aid in:

Ans
✗ 1. copulation and parturition
✗ 2. germ cell maturation, storage and release
✓ 3. fertilisation and transport of gametes
✗ 4. sex hormone production and ovulation

Question ID : **441009427100**
Option 1 ID : **4410091667936**
Option 2 ID : **4410091667935**
Option 3 ID : **4410091667934**
Option 4 ID : **4410091667937**

Q.6 Foetal haemoglobin is a combination of:

Ans
✓ 1. 2 α 2 γ
✗ 2. 2 α 2 Z
✗ 3. 2 α 2 ƍ
✗ 4. 2 α 2 β

Question ID : **441009427084**
Option 1 ID : **4410091667871**
Option 2 ID : **4410091667873**
Option 3 ID : **4410091667872**
Option 4 ID : **4410091667870**

Q.7 Which type of organisational structure promotes specialisation?

Ans
✗ 1. Formal organisation
✗ 2. Matrix organisation
✓ 3. Functional organisation
✗ 4. Line organisation

Question ID : **441009427137**
Option 1 ID : **4410091668085**
Option 2 ID : **4410091668083**
Option 3 ID : **4410091668082**
Option 4 ID : **4410091668084**

Q.8 What is it called when in a newborn, the oedema on the scalp crosses the midline?

Ans
✗ 1. Intracranial haemorrhage
✓ 2. Caput succedaneum
✗ 3. Sublingual haematoma
✗ 4. Cephalohaematoma

Question ID : **441009426815**
Option 1 ID : **4410091666797**
Option 2 ID : **4410091666796**
Option 3 ID : **4410091666795**
Option 4 ID : **4410091666794**

QuickSarkari.com | WhatsApp Channel | Telegram: t.me/quick_sarkari

Q.9 The incision site in the uterus for an elective Lower Segment Caesarean Section (LSCS) is:

Ans
✗ 1. body
✓ 2. isthmus
✗ 3. fundus
✗ 4. cervical canal

Question ID : **441009427405**
Option 1 ID : **4410091669154**
Option 2 ID : **4410091669155**
Option 3 ID : **4410091669156**
Option 4 ID : **4410091669157**

Q.10 In the normal mechanism of labour, which of the following steps occurs after the crowning of the head?

Ans
✗ 1. Internal rotation
✗ 2. Flexion
✗ 3. Restitution
✓ 4. Extension

Question ID : **441009427099**
Option 1 ID : **4410091667930**
Option 2 ID : **4410091667933**
Option 3 ID : **4410091667931**
Option 4 ID : **4410091667932**

Q.11 Goal-directed activities are difficult among patients with:

Ans
✓ 1. mania
✗ 2. dementia
✗ 3. schizophrenia
✗ 4. phobia

Question ID : **441009427040**
Option 1 ID : **4410091667697**
Option 2 ID : **4410091667696**
Option 3 ID : **4410091667694**
Option 4 ID : **4410091667695**

Q.12 A midwife is preparing to assist an obstetrician with forceps delivery. Which blade should the midwife hand over first?

Ans
✓ 1. Left blade
✗ 2. It varies depending on the situation.
✗ 3. Both blades simultaneously
✗ 4. Right blade

Question ID : **441009427013**
Option 1 ID : **4410091667587**
Option 2 ID : **4410091667589**
Option 3 ID : **4410091667588**
Option 4 ID : **4410091667586**

QuickSarkari.com | WhatsApp Channel | Telegram: t.me/quick_sarkari

Q.13 In neonates, jaundice becomes apparent at the sternum by serum bilirubin levels exceeding:

Ans
✗ 1. 1 mg/dl
✓ 2. 2 mg/dl
✗ 3. 1.5 mg/dl
✗ 4. 0.5 mg/dl

Question ID : **441009427395**
Option 1 ID : **4410091669115**
Option 2 ID : **4410091669117**
Option 3 ID : **4410091669116**
Option 4 ID : **4410091669114**

Q.14 A woman has a haemoglobin level of 8 g/dl during the second trimester of pregnancy. The midwife will record the degree of anaemia as:

Ans
✗ 1. no anaemia
✓ 2. moderate anaemia
✗ 3. severe anaemia
✗ 4. mild anaemia

Question ID : **441009427276**
Option 1 ID : **4410091668638**
Option 2 ID : **4410091668640**
Option 3 ID : **4410091668641**
Option 4 ID : **4410091668639**

Q.15 Which of the following steps should be avoided by a nurse while using Controlled Cord Traction (CCT) in active management of the third stage of labour?

Ans
✗ 1. If the placenta does not descend within 30–40 seconds of CCT, discontinue the pull on the cord.
✓ 2. Gently apply cord traction between the contractions of uterus.
✗ 3. Along with cord traction, apply counter traction above the pubic symphysis with the other hand.
✗ 4. Gently pull cord downwards to deliver the placenta when the uterus contracts.

Question ID : **441009426634**
Option 1 ID : **4410091666073**
Option 2 ID : **4410091666071**
Option 3 ID : **4410091666072**
Option 4 ID : **4410091666070**

Q.16 What is another name of separation anxiety?

Ans
✗ 1. Detachment
✓ 2. Anaclitic depression
✗ 3. Despair
✗ 4. Protest

Question ID : **441009426814**
Option 1 ID : **4410091666792**
Option 2 ID : **4410091666793**
Option 3 ID : **4410091666791**
Option 4 ID : **4410091666790**

QuickSarkari.com | WhatsApp Channel | Telegram: t.me/quick_sarkari

Q.17 A midwife performs a physical assessment to elicit anaemia. Which of the following areas is she expected to assess for the presence of pallor?

Ans
- ✗ 1. Gums, under the surface of the tongue and neck veins
- ✗ 2. Bulbar conjunctiva, dorsum of the hand and fingers
- ✓ 3. Palpebral conjunctiva, dorsum of the tongue and nail beds
- ✗ 4. Sclera, hard palate and skin

Question ID : **441009427015**
Option 1 ID : **4410091667597**
Option 2 ID : **4410091667595**
Option 3 ID : **4410091667594**
Option 4 ID : **4410091667596**

Q.18 The third stage of separation anxiety for a hospitalised child stressor reaction is named as:

Ans
- ✗ 1. despair
- ✗ 2. depression
- ✓ 3. detachment
- ✗ 4. protest

Question ID : **441009427399**
Option 1 ID : **4410091669131**
Option 2 ID : **4410091669132**
Option 3 ID : **4410091669130**
Option 4 ID : **4410091669133**

Q.19 Which of the following birth conditions is common among high-risk mothers?

Ans
- ✗ 1. Maternal anaemia
- ✗ 2. Maternal infection
- ✗ 3. Maternal hypothyroidism
- ✓ 4. Maternal diabetes mellitus

Question ID : **441009427402**
Option 1 ID : **4410091669145**
Option 2 ID : **4410091669143**
Option 3 ID : **4410091669144**
Option 4 ID : **4410091669142**

Q.20 During delivery, the nurse supports the perineum with one hand using a clean pad and controls the birth of the head with the fingers of the other hand. The reason for this action is to:

Ans
- ✗ 1. maintain extension and increase perineal space
- ✗ 2. allow the shoulder to drop down the symphysis pubis
- ✗ 3. manually stretch the perineal tissue
- ✓ 4. maintain flexion and allow natural perineal stretching

Question ID : **441009426851**
Option 1 ID : **4410091666939**
Option 2 ID : **4410091666938**
Option 3 ID : **4410091666941**
Option 4 ID : **4410091666940**

Section : **Discipline5**

QuickSarkari.com | WhatsApp Channel | Telegram: t.me/quick_sarkari

Q.1 The value analysis of a material is performed primarily to ensure that a:

Ans
✗ 1. purchase is made through the right method
✓ 2. purchase is made at the right price
✗ 3. purchase is made from the right source
✗ 4. purchase is made in the right quantity

Question ID : **441009427002**
Option 1 ID : **4410091667542**
Option 2 ID : **4410091667544**
Option 3 ID : **4410091667545**
Option 4 ID : **4410091667543**

Q.2 Which undesirable conditions pose a risk when employing individuals in the lead industry?

Ans
✗ 1. Asthma and precancerous lesions
✗ 2. Active tuberculosis and lung disease
✓ 3. Anaemia, hypertension
✗ 4. Liver disease and dermatitis

Question ID : **441009427190**
Option 1 ID : **4410091668295**
Option 2 ID : **4410091668297**
Option 3 ID : **4410091668294**
Option 4 ID : **4410091668296**

Q.3 When a preschool child is admitted to the hospital, which of the following types of reaction will the child show due to hospitalisation?

Ans
✗ 1. Excessive crying
✓ 2. Separation anxiety
✗ 3. Anger
✗ 4. Protest

Question ID : **44100951375**
Option 1 ID : **441009204640**
Option 2 ID : **441009204641**
Option 3 ID : **441009204642**
Option 4 ID : **441009204639**

Q.4 Which of the following is a property/character of clostridium tetani?

Ans
✓ 1. Gram-positive, anaerobic, spore-bearing
✗ 2. Gram-negative, anaerobic, spore-bearing
✗ 3. Gram-negative, aerobic, non-spore forming
✗ 4. Gram-positive, aerobic, non-spore forming

Question ID : **441009426912**
Option 1 ID : **4410091667184**
Option 2 ID : **4410091667185**
Option 3 ID : **4410091667182**
Option 4 ID : **4410091667183**

QuickSarkari.com | WhatsApp Channel | Telegram: t.me/quick_sarkari

Q.5 Which of the following is NOT a principle of primary health care?

Ans
✗ 1. Appropriate technology
✓ 2. Decentralised approach
✗ 3. Community participation
✗ 4. Intersectoral coordination

Question ID : **441009426916**
Option 1 ID : **4410091667200**
Option 2 ID : **4410091667201**
Option 3 ID : **4410091667199**
Option 4 ID : **4410091667198**

Q.6 Which of the following represents the correct order of material management processes?

Ans
✓ 1. Demand estimation, procurement, and storage, inventory
✗ 2. Storage, inventory, procurement and demand estimation
✗ 3. Procurement, demand estimation, storage and inventory
✗ 4. Inventory, demand estimation, storage and procurement

Question ID : **441009426858**
Option 1 ID : **4410091666968**
Option 2 ID : **4410091666967**
Option 3 ID : **4410091666966**
Option 4 ID : **4410091666969**

Q.7 Which of the following is an activity to be performed during the evaluation phase of a home visit?

Ans
✗ 1. Follow-through
✗ 2. Use of expert technical skill
✓ 3. Review of each family record
✗ 4. Planning for the next visit

Question ID : **441009427222**
Option 1 ID : **4410091668422**
Option 2 ID : **4410091668423**
Option 3 ID : **4410091668424**
Option 4 ID : **4410091668425**

Q.8 Which of the following aims of nursing education will enable the nurses to develop the appropriate skills and attitude for professional practice?

Ans
✓ 1. Professional development aim
✗ 2. Personality development aim
✗ 3. Intellectual development aim
✗ 4. Leadership development aim

Question ID : **441009427107**
Option 1 ID : **4410091667963**
Option 2 ID : **4410091667962**
Option 3 ID : **4410091667964**
Option 4 ID : **4410091667965**

QuickSarkari.com | WhatsApp Channel | Telegram: t.me/quick_sarkari

Q.9 Which of the following is the preventive strategy for chickenpox infection in immunosuppressed individuals?

Ans
✔ 1. Initiating Varicella-Zoster immunoglobulin (VZIG) within 72 hours of exposure
✘ 2. Administering acyclovir prophylactically
✘ 3. Isolating for 6 days after exposure
✘ 4. Administering the Measles, Mumps, Rubella, and Varicella (MMRV) vaccine

Question ID : **441009427193**
Option 1 ID : **4410091668307**
Option 2 ID : **4410091668306**
Option 3 ID : **4410091668309**
Option 4 ID : **4410091668308**

Q.10 Where are the adult worms of Bancroftian and Brugian Filariasis typically found in the human body?

Ans
✔ 1. Lymphatic system
✘ 2. Liver
✘ 3. Lungs
✘ 4. Intestines

Question ID : **441009426679**
Option 1 ID : **4410091666252**
Option 2 ID : **4410091666251**
Option 3 ID : **4410091666250**
Option 4 ID : **4410091666253**

Q.11 In material management, the term 'ABC' denotes:

Ans
✘ 1. Adequately Best Coordinated
✔ 2. Always Better Control
✘ 3. Aim Based Control
✘ 4. Analysis for Better Cost

Question ID : **441009426735**
Option 1 ID : **4410091666475**
Option 2 ID : **4410091666474**
Option 3 ID : **4410091666476**
Option 4 ID : **4410091666477**

Q.12 In a community where there is a high prevalence of childhood obesity, which approach best exemplifies primary prevention?

Ans
✘ 1. Implementing regular health screenings to detect early signs of obesity-related complications
✘ 2. Providing counseling sessions for obese individuals to manage their weight
✔ 3. Introducing policies that promote healthy eating and physical activity in schools
✘ 4. Offering free medications for adults diagnosed with obesity-related conditions

Question ID : **441009426772**
Option 1 ID : **4410091666623**
Option 2 ID : **4410091666622**
Option 3 ID : **4410091666624**
Option 4 ID : **4410091666625**

QuickSarkari.com | WhatsApp Channel | Telegram: t.me/quick_sarkari

Q.13 Which of the following statements describes Health-Adjusted Life Expectancy (HALE)?

Ans
✔ 1. Life expectancy at birth includes an adjustment for time spent in poor health.
✘ 2. It is used interchangeably to measure life expectancy.
✘ 3. It measures the number of years a person can live in perfect health.
✘ 4. It is equal to one year of healthy life lost.

Question ID : **441009427490**
Option 1 ID : **4410091669495**
Option 2 ID : **4410091669496**
Option 3 ID : **4410091669494**
Option 4 ID : **4410091669497**

Q.14 Sunken features, loss of subcutaneous fat, muscle wasting and body weight below 40% are the features of which of the following?

Ans
✘ 1. Kwashiorkor
✘ 2. Dehydration
✔ 3. Marasmus
✘ 4. Tuberculosis

Question ID : **441009427087**
Option 1 ID : **4410091667882**
Option 2 ID : **4410091667885**
Option 3 ID : **4410091667884**
Option 4 ID : **4410091667883**

Q.15 Name the type of grievance that occurs when a nurse is not given a break during working hours.

Ans
✘ 1. Disguised grievance
✘ 2. Imaginary grievance
✔ 3. Factual grievance
✘ 4. Dispute grievance

Question ID : **441009426856**
Option 1 ID : **4410091666961**
Option 2 ID : **4410091666960**
Option 3 ID : **4410091666959**
Option 4 ID : **4410091666958**

Q.16 When formulating objectives, what does the letter 'S' denote in the acronym SMART?

Ans
✘ 1. Short term
✔ 2. Specific
✘ 3. Simple
✘ 4. Strategic

Question ID : **441009427417**
Option 1 ID : **4410091669205**
Option 2 ID : **4410091669202**
Option 3 ID : **4410091669204**
Option 4 ID : **4410091669203**

QuickSarkari.com | WhatsApp Channel | Telegram: t.me/quick_sarkari

Q.17 Which of the following roles is NOT expected of a Community Health Officer (CHO) working in a Health and Wellness Center (HWC)?

Ans
- ✗ 1. Providing ambulatory care and management
- ✓ 2. Organising Village Health Sanitation and Nutrition Day
- ✗ 3. Managing the efficient functioning of the Health and Wellness Centers
- ✗ 4. Promoting health, prevention and disease surveillance

Question ID : **441009427517**
Option 1 ID : **4410091669602**
Option 2 ID : **4410091669603**
Option 3 ID : **4410091669605**
Option 4 ID : **4410091669604**

Q.18 Which of the following malarial species is associated with a 72-hour fever cycle?

Ans
- ✗ 1. Plasmodium falciparum
- ✓ 2. Plasmodium malariae
- ✗ 3. Plasmodium ovale
- ✗ 4. Plasmodium vivax

Question ID : **441009427516**
Option 1 ID : **4410091669598**
Option 2 ID : **4410091669601**
Option 3 ID : **4410091669600**
Option 4 ID : **4410091669599**

Q.19 Name the role where an experienced employee provides teaching and guidance to a new employee in the same area of work.

Ans
- ✓ 1. Preceptorship
- ✗ 2. Guideship
- ✗ 3. Supervisorship
- ✗ 4. Mentorship

Question ID : **441009426734**
Option 1 ID : **4410091666470**
Option 2 ID : **4410091666472**
Option 3 ID : **4410091666473**
Option 4 ID : **4410091666471**

Q.20 Which of the following is/are (a) prodromal symptom(s) commonly associated with rubella infection?

Ans
- ✗ 1. Rash starting on the hands and feet
- ✗ 2. Severe diarrhoea and related dehydration
- ✗ 3. High-grade fever and cough
- ✓ 4. Coryza, sore throat and low-grade fever

Question ID : **441009426773**
Option 1 ID : **4410091666628**
Option 2 ID : **4410091666629**
Option 3 ID : **4410091666626**
Option 4 ID : **4410091666627**

QuickSarkari.com | WhatsApp Channel | Telegram: t.me/quick_sarkari

Quick Sarkari

Thank you for studying with QuickSarkari!

Get the latest Sarkari Naukri notifications, admit cards, results, answer keys and free previous-year papers first - follow us on WhatsApp and Telegram.

Visit www.quicksarkari.com

Join our WhatsApp Channel

https://whatsapp.com/channel/0029VaxxbrREquiPoXTWM229

Join our Telegram Channel

https://t.me/quick_sarkari

Share this PDF with your friends preparing for DSSSB exams.