Quick Sarkari

DSSSB PREVIOUS YEAR PAPER WITH ANSWER KEY

DSSSB PGT Geography

25 July 2025 · Shift 1

डीएसएसएसबी पीजीटी भूगोल – 25 जुलाई 2025, शिफ्ट 1 का प्रश्न पत्र, उत्तर कुंजी सहित

300	180 min	1 / −0.25	EN + HI
Questions / प्रश्न	Duration / समय	Marks per Q / अंक	Language / भाषा

Sections: Mental Ability and Reasoning Ability, General Awareness, Numerical Aptitude and Data Interpretation, English Language and Comprehension, Hindi Language and Comprehension, Geography

INSIDE THIS PDF / इस PDF में

Question Paper in English + Hindi with Answer Key (correct option marked in green) + answer table — Page 2–67
प्रश्न पत्र अंग्रेज़ी + हिंदी में, उत्तर कुंजी सहित (सही विकल्प हरे रंग में) + उत्तर तालिका

Official DSSSB Response Sheet with Answer Key (correct option ticked in green) — Page 68–175
आधिकारिक DSSSB रिस्पॉन्स शीट, उत्तर कुंजी सहित (सही विकल्प हरे टिक से)

HOW TO USE THIS PAPER / इस पेपर का उपयोग कैसे करें

1. Attempt the paper first as a timed online mock test (link below).
   पहले नीचे दिए लिंक से इसे टाइमर के साथ ऑनलाइन मॉक टेस्ट के रूप में हल करें।
2. Check your score, section-wise analysis and solutions online.
   ऑनलाइन अपना स्कोर, खंड-वार विश्लेषण और हल देखें।
3. Use this PDF for revision. Correct answers are shown in green.
   दोहराने के लिए इस PDF का उपयोग करें। सही उत्तर हरे रंग में दिए गए हैं।

Attempt this paper as a FREE online mock test
इस पेपर को फ्री ऑनलाइन मॉक टेस्ट के रूप में हल करें – टाइमर, स्कोर और हल के साथ
https://quicksarkari.com/dsssb-pgt-geography-25-july-2025-shift-1-mock-test/

All DSSSB PGT Geography papers and mock tests: **quicksarkari.com/dsssb-mock-test/#pgt-geography**

Join WhatsApp Channel | Join Telegram Channel

DSSSB PGT Geography – Question Paper (English + Hindi)

DSSSB पीजीटी भूगोल – प्रश्न पत्र (अंग्रेज़ी + हिंदी)

Exam held on 25 July 2025, Shift 1 · 300 questions · correct answers marked ✔ in green
परीक्षा तिथि 25 जुलाई 2025, शिफ्ट 1 · 300 प्रश्न · सही उत्तर हरे रंग में ✔ से चिह्नित

> The official paper for this shift was in Hindi. The English version of each question is a translation prepared by QuickSarkari; the language-section questions are shown as asked.
> इस शिफ्ट का आधिकारिक प्रश्न पत्र हिंदी में था। प्रत्येक प्रश्न का अंग्रेज़ी संस्करण QuickSarkari द्वारा तैयार किया गया अनुवाद है; भाषा खंड के प्रश्न मूल रूप में दिए गए हैं।

Mental Ability and Reasoning Ability

Q.1 In a row, a certain number of persons are sitting facing north. A is sitting third to the right of B. Only two persons are sitting between A and C. E is sitting third to the left of D. Only one person is sitting between D and C. E is not an immediate neighbour of B. If no other person is sitting in the row, then what is the total number of persons sitting?

एक पंक्ति में, कुछ निश्चित संख्या में व्यक्ति उत्तर दिशा की ओर अभिमुख होकर बैठे हैं। A, B के दाईं ओर तीसरे स्थान पर बैठा है। A और C के बीच केवल दो व्यक्ति बैठे हैं। E, D के बाईं ओर तीसरे स्थान पर बैठा है। D और C के बीच केवल एक व्यक्ति बैठा है। E, B का निकटतम पड़ोसी नहीं है। यदि पंक्ति में कोई अन्य व्यक्ति नहीं बैठा है, तो बैठे हुए व्यक्तियों की कुल संख्या कितनी है?

(1) 11
(2) **9 ✔**
(3) 7
(4) 8

Q.2 In a certain code language, 'A + B' means 'A is the mother of B', 'A − B' means 'A is the father of B', 'A $ B' means 'A is the son of B' and 'A % B' means 'A is the sister of B'.
Which of the following means that K is the brother of L?
(I) K − L $ J + M % N
(II) L $ K + J % N − M
(III) K − M $ N + J % L
(IV) J − K $ M + L % N

एक निश्चित कूट भाषा में, 'A + B' का अर्थ है कि 'A, B की माता है', 'A − B' का अर्थ है कि 'A, B का पिता है', 'A $ B' का अर्थ है कि 'A, B का पुत्र है' और 'A % B' का अर्थ है कि 'A, B की बहन है'।
निम्नलिखित में से किसका अर्थ है कि K, L का भाई है?
(I) K − L $ J + M % N
(II) L $ K + J % N − M
(III) K − M $ N + J % L
(IV) J − K $ M + L % N

(1) **Only (IV) / केवल (IV) ✔**
(2) (III) and (IV) / (III) और (IV)
(3) Only (III) / केवल (III)
(4) Only (II) / केवल (II)

Q.3 In a certain code, 'mobile govern life' is coded as 'tu mi ba', 'politician govern country' is coded as 'mi ka pu' and 'country is life' is coded as 'ba ka se'.
(All codes are two-letter codes only.)
What is the possible code for 'mobile politician'?
एक निश्चित कूट में, 'mobile govern life' को 'tu mi ba' के रूप में कूटबद्ध किया जाता है, 'politician govern country' को 'mi ka pu' के रूप में कूटबद्ध किया जाता है और 'country is life' को 'ba ka se' के रूप में कूटबद्ध किया जाता है।
(सभी कूट केवल दो-अक्षर वाले कूट हैं।)
'mobile politician' का संभावित कूट क्या है?

(1) ba mi
(2) pu mi
(3) tu ka
(4) **tu pu ✔**

Q.4 In the following number-pairs, the second number is obtained by performing certain mathematical operations on the first number. By which numbers should X and Y be replaced so that the pattern followed by the two numbers on the left side of :: is the same as the pattern followed by the two numbers on the right side of :: ?
(NOTE: Operations should be performed on the whole numbers, without breaking down the numbers into their constituent digits. E.g. 13 - Operations on 13 such as adding /subtracting /multiplying etc. to 13 can be performed. Breaking down 13 into 1 and 3 and then performing mathematical operations on 1 and 3 is not allowed.)
X : 319 :: 20 : Y
निम्नलिखित संख्या-युग्मों में, पहली संख्या पर कुछ गणितीय संक्रियाएँ करके दूसरी संख्या प्राप्त की जाती है। X और Y को किस संख्या से प्रतिस्थापित किया जाना चाहिए ताकि :: के बाईं ओर दो संख्याओं द्वारा अनुसरण किया गया पैटर्न :: के दाईं ओर दो संख्याओं द्वारा अनुसरण किए गए पैटर्न के समान हो?
(नोट: संख्याओं को उनके घटक अंकों में तोड़े बिना, पूर्ण संख्याओं पर संक्रियाएँ की जानी चाहिए। उदाहरण के लिए, 13 लीजिए - 13 पर संक्रियाएँ जैसे कि 13 में जोड़ना/घटाना/गुणा करना, आदि किया जा सकता है। 13 को 1 और 3 में तोड़ना तथा फिर 1 और 3 पर गणितीय संक्रियाएँ करने की अनुमति नहीं है।)
X : 319 :: 20 : Y

(1) **X = 18, Y = 395 ✔**
(2) X = 17, Y = 401
(3) X = 18, Y = 399
(4) X = 17, Y = 395

Q.5 Lakshman started driving from point A and drove 5 km towards north. Then he turned left and drove 10 km. He again turned left and drove 4 km to reach point B. Priya started driving from point A and drove 5 km towards north. She turned right and drove another 5 km. She again turned right, drove 4 km and reached point C. In which direction is point B with respect to point C? (All turns are 90 degree turns.)
लक्ष्मण ने बिंदु A से गाड़ी चलाना शुरू किया और उत्तर दिशा में 5 km गाड़ी चलाई। फिर वह बाएँ मुड़ा और 10 km गाड़ी चलाई। वह फिर से बाएँ मुड़ा और 4 km गाड़ी चलाकर बिंदु B पर पहुँचा। प्रिया ने बिंदु A से गाड़ी चलाना शुरू किया और उत्तर दिशा में 5 km गाड़ी चलाई। उसने दाएँ मुड़कर 5 km और गाड़ी चलाई। उसने फिर से दाएँ मुड़कर 4 km गाड़ी चलाई और बिंदु C पर पहुँची। बिंदु C के संदर्भ में बिंदु B किस दिशा में है? (सभी मोड़ 90 डिग्री के मोड़ हैं।)

(1) North / उत्तर
(2) **West / पश्चिम ✔**
(3) East / पूर्व
(4) South / दक्षिण

Q.6 This question is based on the words given below.
HAT DOG SIM FOE In each word, each vowel is replaced by the letter immediately following it in the English alphabetical order and each consonant is replaced by the letter immediately preceding it in the English alphabetical order. How many of the letter-clusters thus formed will NOT have a vowel?
यह प्रश्न नीचे दिए गए शब्दों पर आधारित है।
HAT DOG SIM FOE प्रत्येक शब्द में, प्रत्येक स्वर को अंग्रेजी वर्णमाला क्रम में उसके ठीक बाद वाले अक्षर से बदल दिया गया है और प्रत्येक व्यंजन को अंग्रेजी वर्णमाला क्रम में उसके ठीक पहले वाले अक्षर से बदल दिया गया है। इस प्रकार बने कितने अक्षर-समूहों में कोई स्वर नहीं आएगा?

(1) None / एक भी नहीं
(2) **Three / तीन ✔**
(3) One / एक
(4) Two / दो

Q.7 Three of the following four letter-cluster pairs are alike in a certain way based on the English alphabetical order and thus form a group. Which letter-cluster pair does NOT belong to that group?
(Note: The odd letter-cluster pair is not based on the number of consonants/vowels or their position in the letter-cluster.)
अंग्रेजी वर्णमाला क्रम के आधार पर, निम्नलिखित चार अक्षर-समूह युग्मों में से तीन एक निश्चित तरीके से एकसमान हैं और इस प्रकार एक ग्रुप बनाते हैं। कौन-सा अक्षर-समूह युग्म, उस ग्रुप से संबंधित नहीं है?
(नोट: असंगत अक्षर-समूह युग्म, व्यंजनों/स्वरों की संख्या या उनकी स्थिति पर आधारित नहीं है।)

(1) JE-KM
(2) **TO-UX ✔**
(3) QL-RT
(4) LG-MO

Q.8 Three of the following four letter-cluster pairs are alike in a certain way based on the English alphabetical order and thus form a group. Which letter-cluster pair does NOT belong to that group?
(Note: The odd letter-cluster pair is not based on the number of consonants/vowels or their position in the letter-cluster.)
अंग्रेजी वर्णमाला क्रम के आधार पर, निम्नलिखित चार अक्षर-समूह युग्मों में से तीन एक निश्चित तरीके से एकसमान हैं और इस प्रकार एक ग्रुप बनाते हैं। कौन-सा अक्षर-समूह युग्म, उस ग्रुप से संबंधित नहीं है?
(नोट: असंगत अक्षर-समूह युग्म, व्यंजनों/स्वरों की संख्या या उनकी स्थिति पर आधारित नहीं है।)

(1) **KO-JM ✔**
(2) OS-NR
(3) FJ-EI
(4) IM-HL

QuickSarkari.com | WhatsApp Channel | Telegram: t.me/quick_sarkari

Q.9 Eight persons are sitting in two parallel rows containing 4 persons each, in such a way that there is an equal distance between adjacent persons.
In row 1, I, N, F and O are seated and all of them are facing south.
In row 2, J, A, R and S are seated and all of them are facing north.
Therefore, each person sitting in a row faces another person sitting in the other row.
N sits third to the right of O. S sits third to the left of R. F sits somewhere to the right of I and does not face A.
The person who faces I is an immediate neighbour of R.
Which of the following options shows the two persons sitting at the extreme ends of the row?
आठ व्यक्ति, 4-4 व्यक्तियों वाली दो समानांतर पंक्तियों में इस प्रकार बैठे हैं कि आसन्न व्यक्तियों के बीच की दूरी समान है।
पंक्ति 1 में, I, N, F और O बैठे हैं और सभी दक्षिण की ओर अभिमुख होकर बैठे हैं।
पंक्ति 2 में, J, A, R और S बैठे हैं और सभी उत्तर की ओर अभिमुख होकर बैठे हैं।
इस प्रकार, प्रत्येक व्यक्ति दूसरी पंक्ति में बैठे अन्य व्यक्ति के सम्मुख बैठा है।
N, O के दाईं ओर तीसरे स्थान पर बैठा है। S, R के बाईं ओर तीसरे स्थान पर बैठा है। F, I के दाईं ओर किसी स्थान पर बैठा है और A के सम्मुख नहीं है। I के सम्मुख बैठा व्यक्ति, R का निकटतम पड़ोसी है।
निम्नलिखित में से कौन-सा विकल्प पंक्ति के छोर पर बैठे दोनों व्यक्तियों को दर्शाता है?

(1) N and J / N और J
(2) F and A / F और A
(3) **O and R / O और R ✔**
(4) S and I / S और I

Q.10 As per a certain logic, 43 is related to 26. Following the same logic, 87 is related to 70. Following the same logic, 91 is related to which of the given options?
(NOTE: Operations should be performed on the whole numbers, without breaking down the numbers into their constituent digits. E.g. 13 - Operations on 13 such as adding/subtracting/multiplying etc. to 13 can be performed.
Breaking down 13 into 1 and 3 and then performing mathematical operations on 1 and 3 is not allowed.)
एक निश्चित तर्क के अनुसार, 43 का संबंध 26 से है। उसी तर्क के अनुसार, 87 का संबंध 70 से है। समान
तर्क के अनुसार, 91 का संबंध दिए गए विकल्पों में से किससे है?
(नोट: संख्याओं को उनके घटक अंकों में तोड़े बिना संक्रियाएँ, पूर्ण संख्याओं पर की जानी चाहिए। उदाहरण के लिए, 13 लीजिए - 13 पर संक्रियाएँ जैसे कि 13 में जोड़ना/घटाना/गुणा करना, आदि की जा सकती हैं। 13 को 1 और 3 में तोड़ना तथा फिर 1 और 3 पर गणितीय संक्रियाएँ करना अनुमत नहीं है।)

(1) 86
(2) 78
(3) **74 ✔**
(4) 73

Q.11 In the following series, only one letter-cluster is incorrect. Select the incorrect letter-cluster.
GAU LFZ QKE VPJ AVO FZT
निम्नलिखित श्रृंखला में, केवल एक अक्षर-समूह गलत है। गलत अक्षर-समूह का चयन करें।
GAU LFZ QKE VPJ AVO FZT

(1) QKE
(2) **AVO ✔**
(3) VPJ
(4) FZT

Q.12 Which of the following letter-clusters will replace # and % so that the pattern and relationship between the letter-cluster pair on the left side of :: is the same as the pattern and relationship between the letter-cluster pair on the right side of :: ?

: TPF :: RFG : %

निम्नलिखित में से कौन-सा अक्षर-समूह, # और % को प्रतिस्थापित करेगा ताकि :: के बाईं ओर के अक्षर- समूह युग्म के बीच का पैटर्न और संबंध :: के दाईं ओर के अक्षर-समूह युग्म के बीच के पैटर्न और संबंध के समान हो?

: TPF :: RFG : %

(1) # = ZAT, % = KDO

(2) # = ZZB, % = KFL

(3) # = WTJ, % = ODZ

(4) # = WSA, % = OCL ✔

Q.13 Which of the given letter-number clusters will replace the question mark (?) to logically complete the following series?

GHJ197, MNP206, STV215, YZB224, ?

निम्नलिखित श्रृंखला को तार्किक रूप से पूर्ण बनाने के लिए, दिए गए अक्षर-संख्या समूहों में से कौन-सा, प्रश्न-चिन्ह (?) के स्थान पर आएगा?

GHJ197, MNP206, STV215, YZB224, ?

(1) EFZ233

(2) EFH231

(3) GFH233

(4) EFH233 ✔

Q.14 This question is based on the words given below.

MAY LIE DYE FAR In each word, each consonant is replaced by the letter immediately following it in the English alphabetical order, and the vowels remain as they are. How many of the letter-clusters thus formed will have at least two vowels?

यह प्रश्न नीचे दिए गए शब्दों पर आधारित है।

MAY LIE DYE FAR प्रत्येक शब्द में, प्रत्येक व्यंजन को अंग्रेजी वर्णमाला क्रम में उसके ठीक बाद वाले अक्षर से बदल दिया जाता है, और स्वर उसी तरह रहते हैं। इस प्रकार बने कितने अक्षर-समूहों में कम से कम दो स्वर होंगे?

(1) Three / तीन

(2) None / एक भी नहीं

(3) One / एक

(4) Two / दो ✔

Q.15 Two sets of numbers are given below. In each set of numbers, certain mathematical operation(s) on the first number result(s) in the second number. Similarly, certain mathematical operation(s) on the second number result(s) in the third number and so on. Which of the given options follows the same set of operations as in the given sets?
(NOTE: Operations should be performed on the whole numbers, without breaking down the numbers into their constituent digits. E.g. 13 - Operations on 13 such as adding/subtracting/multiplying etc. to 13 can be performed.
Breaking down 13 into 1 and 3 and then performing mathematical operations on 1 and 3 is not allowed.)
5 – 25 – 50 – 55 7 – 49 – 98 – 103

नीचे संख्याओं के दो सेट दिए गए हैं। संख्याओं के प्रत्येक सेट में, पहली संख्या पर निश्चित गणितीय संक्रियाएँ करके दूसरी संख्या प्राप्त की जाती है। इसी प्रकार, दूसरी संख्या पर निश्चित गणितीय संक्रियाएँ करके तीसरी संख्या प्राप्त की जाती है, इसी प्रकार आगे की संख्याएँ प्राप्त की जाती हैं। दिए गए विकल्पों में से कौन-सा विकल्प, दिए गए सेटों में, संक्रियाओं के समान सेट का अनुसरण करता है?
(नोट: संख्याओं को उनके घटक अंकों में तोड़े बिना संक्रियाएँ, पूर्ण संख्याओं पर की जानी चाहिए। उदाहरण के लिए, 13 लीजिए - 13 पर संक्रियाएँ जैसे कि 13 में जोड़ना/घटाना/गुणा करना, आदि की जा सकती हैं।
13 को 1 और 3 में तोड़ना तथा फिर 1 और 3 पर गणितीय संक्रियाएँ करने की अनुमति नहीं है।)
5 – 25 – 50 – 55 7 – 49 – 98 – 103

(1) 4 – 16 – 32 – 37 ✔
(2) 1 – 1 – 2 – 10
(3) 9 – 81 – 162 – 170
(4) 3 – 6 – 12 – 17

Q.16 If '+' and '−' are interchanged and '×' and '÷' are interchanged, then what will come in place of the question mark (?) in the following equation?
8442 × 2 − 103 + 202 ÷ 9 = ?

यदि '+' और '−' को आपस में बदल दिया जाए तथा '×' और '÷' को आपस में बदल दिया जाए, तो निम्नलिखित समीकरण में प्रश्न-चिह्न (?) के स्थान पर क्या आएगा?
8442 × 2 − 103 + 202 ÷ 9 = ?

(1) 2506 ✔
(2) 2406
(3) 2306
(4) 2206

Q.17 Each of P, Q, R, S, T, U and V has an exam on a different day of the same week, starting from Monday and ending on Sunday. Q's exam is immediately before P. S's exam is immediately after T. Only five persons have exams between T and P. V's exam is on one of the days before R but on one of the days after U. Who has the exam on Friday?
2

P, Q, R, S, T, U और V में से प्रत्येक की परीक्षा सोमवार से शुरू होकर रविवार को समाप्त होने वाले उसी सप्ताह के अलग-अलग दिन होती है। Q की परीक्षा P से ठीक पहले है। S की परीक्षा T के ठीक बाद है। T और P के बीच केवल पाँच व्यक्तियों की परीक्षा है। V की परीक्षा R से पहले किसी एक दिन लेकिन U के बाद किसी एक दिन है। शुक्रवार को किसकी परीक्षा है?
2

(1) Q
(2) R ✔
(3) V
(4) U

Q.18 Read the given statement and conclusions carefully. Assuming that the information given in the statement is true, even if it appears to be at variance with commonly known facts, decide which of the given conclusions logically follow(s) from the statement.
Statement:
Company T, a leading software giant, recorded a 30% increase in employee productivity after implementing a mandatory four-day work week and introducing wellness programmes. According to the CEO in this regard, employees were feeling more refreshed and motivated.
Conclusions:
(I) Employee well-being can have a positive impact on productivity in Company T.
(II) The 4-day work week is the only reason for the increase in productivity in Company T.

दिए गए कथन और निष्कर्षों को ध्यानपूर्वक पढ़िए। यह मानते हुए कि कथनों में दी गई जानकारी सत्य है, भले ही वह सामान्यतः ज्ञात तथ्यों से भिन्न प्रतीत होती हो, निर्णय किजिए कि दिए गए निष्कर्षों में से कौन-से
निष्कर्ष कथन का तार्किक रूप से अनुसरण करते हैं।
कथन:
एक प्रमुख सॉफ्टवेयर दिग्गज, कंपनी T, ने अनिवार्य चार-दिवसीय कार्य सप्ताह के कार्यान्वयन और कल्याण कार्यक्रमों की शुरुआत के बाद कर्मचारी उत्पादकता में 30% की वृद्धि दर्ज की। इस संबंध में CEO के मतानुसार, कर्मचारी अधिक तरोताजा और प्रेरित महसूस कर रहे थे।
निष्कर्ष:
(I) कर्मचारी कल्याण, कंपनी T में उत्पादकता पर सकारात्मक प्रभाव डाल सकता है।
(II) कंपनी T में उत्पादकता में वृद्धि का एकमात्र कारण 4-दिवसीय कार्य सप्ताह है।

(1) Only conclusion II follows. / केवल निष्कर्ष II अनुसरण करता है।
(2) Both conclusions I and II follow. / निष्कर्ष I और II दोनों अनुसरण करते हैं।
(3) Only conclusion I follows. / केवल निष्कर्ष I अनुसरण करता है। ✔
(4) Neither conclusion I nor II follows. / न तो निष्कर्ष I और न ही II अनुसरण करता है।

Q.19 Study the given figure and answer the question that follows.
The numbers given in the different sections represent the number of persons.

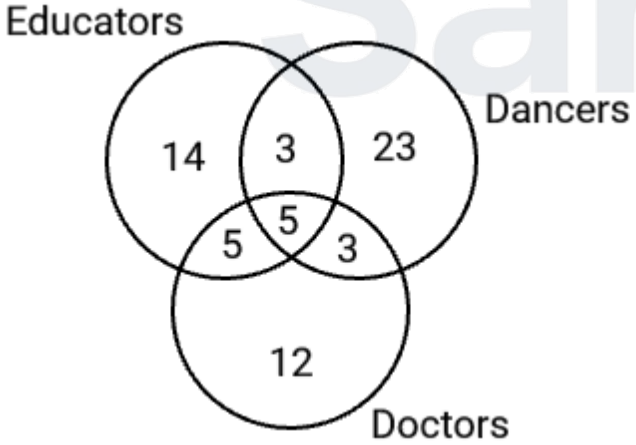

Reference- Educators- Educators Dancers- Dancers Doctors- Doctors What is the total number of dancers?

दी गई आकृति का अध्ययन कीजिए और नीचे दिए गए प्रश्न का उत्तर दीजिए।
विभिन्न खंडों में दी गई संख्याएँ व्यक्तियों की संख्या दर्शाती हैं।
संदर्भ- Educators- शिक्षक Dancers- नर्तक Doctors- डॉक्टरनर्तकों की कुल संख्या कितनी है?

(1) 23
(2) 11
(3) 26
(4) 34 ✔

Q.20 What should come in place of the question mark (?) in the given series?
59, 65.3, 71.6, 77.9, 84.2, ?
दी गई श्रृंखला में प्रश्न-चिह्न (?) के स्थान पर क्या आना चाहिए?
59, 65.3, 71.6, 77.9, 84.2, ?

(1) 95.3
(2) 87.9
(3) **90.5 ✔**
(4) 94.6

General Awareness

Q.21 During Akbar's reign, the Diwan-i-Kul was responsible for which of the following in the empire?
अकबर के शासनकाल में, दीवान-ए-कुल, साम्राज्य में निम्नलिखित में से किसके प्रति उत्तरदायी होता था?

(1) Religious grants / धार्मिक अनुदान
(2) **Revenue and finance / राजस्व एवं वित्त ✔**
(3) Military organisation / सैन्य संगठन
(4) Security of the Mughal emperor and the royal family / मुगल सम्राट और शाही परिवार की सुरक्षा

Q.22 Which state topped the 'Good Health and Well-being' (SDG 3) index in the 2023-24 edition of NITI Aayog released in July 2025?
जुलाई 2025 में जारी नीति (NITI) आयोग के 2023-24 संस्करण में कौन-सा राज्य 'अच्छे स्वास्थ्य और कल्याण' (SDG 3) सूचकांक में शीर्ष पर रहा?

(1) Kerala / केरल
(2) Maharashtra / महाराष्ट्र
(3) **Gujarat / गुजरात ✔**
(4) Uttarakhand / उत्तराखंड

Q.23 A member of the Union Council of Ministers must necessarily be a member of _____.
केंद्रीय मंत्रिपरिषद के सदस्य को अनिवार्यतः _____ का सदस्य होना चाहिए।

(1) the State Legislative Assembly / राज्य विधान सभा
(2) the State Legislative Council / राज्य विधान परिषद
(3) the Public Accounts Committee / लोक लेखा समिति
(4) **either House of Parliament / संसद के किसी भी सदन ✔**

Q.24 The ability of women to actively participate in economic and political life is measured by _____.
आर्थिक और राजनीतिक जीवन में सक्रिय रूप से भाग लेने की महिलाओं की क्षमता को _____ द्वारा मापा जाता है।

(1) **GEM ✔**
(2) GDI
(3) CPM
(4) HDI

Q.25 The Cabinet mission came to India in 1946 with the aim of deliberations with Indian leaders on the issue of _____.

कैबिनेट मिशन 1946 में _____ के मुद्दे पर भारतीय नेताओं के साथ विचार-विमर्श करने के उद्देश्य से भारत आया था।

(1) transferring power to Indians / भारतीयों को सत्ता हस्तांतरित करने ✔

(2) liberating India / भारत को स्वतंत्र करने

(3) separating India and Pakistan / भारत और पाकिस्तान को अलग करने

(4) announcing Independence / स्वतंत्रता की घोषणा करने

Q.26 Why is Republic Day important for the Constitution of India?

गणतंत्र दिवस, भारत के संविधान के लिए क्यों महत्वपूर्ण है?

(1) It was signed on this day. / इस पर हस्ताक्षर इसी दिन हुए थे।

(2) It was translated on this day. / इसका अनुवाद इसी दिन हुआ था।

(3) It was first debated on this day. / इस पर पहली बार बहस इसी दिन हुई थी।

(4) It was adopted on this day. / इसे इसी दिन अपनाया गया था। ✔

Q.27 Who has the power to regulate the right of citizenship by law?

नागरिकता के अधिकार को कानून द्वारा विनियमित करने की शक्ति किसके पास है?

(1) State Legislature / राज्य विधानमंडल

(2) Parliament / संसद ✔

(3) Judiciary / न्यायपालिका

(4) Executive / कार्यपालिका

Q.28 In which of the following years was the Bharat Nirman programme launched for the development of rural India?

निम्नलिखित में से किस वर्ष ग्रामीण भारत के विकास के लिए, भारत निर्माण कार्यक्रम शुरू किया गया था?

(1) 2006

(2) 2007

(3) 1995

(4) 2005 ✔

Q.29 Which Article of the Indian Constitution deals with the 'appointment of ad hoc judges' in the Supreme Court of India?

भारतीय संविधान का कौन-सा अनुच्छेद भारत के सर्वोच्च न्यायालय में 'तदर्थ न्यायाधीशों की नियुक्ति' से संबंधित है?

(1) Article 123 / अनुच्छेद 123

(2) Article 127 / अनुच्छेद 127 ✔

(3) Article 125 / अनुच्छेद 125

(4) Article 128 / अनुच्छेद 128

QuickSarkari.com | WhatsApp Channel | Telegram: t.me/quick_sarkari

Q.30 Arrange the following Sultans of the Delhi Sultanate in the correct chronological order.
a. Razia Sultan
b. Qutbuddin Aibak
c. Ghiyasuddin Balban
d. Iltutmish

दिल्ली सल्तनत के निम्न सुल्तानों को सही कालानुक्रमिक क्रम में व्यवस्थित कीजिए।
a. रजिया सुल्तान
b. कुतुबुद्दीन ऐबक
c. गयासुद्दीन बलबन
d. इल्तुतमिश

(1) d, a, c, b
(2) c, d, b, a
(3) **b, d, a, c ✔**
(4) b, d, c, a

Q.31 Which festival is celebrated by the Arunachali Monpas to mark the arrival of spring and the first day of the lunar calendar?

अरुणाचली मोनपा (Arunachali Monpas) द्वारा वसंत के आगमन और चंद्र कैलेंडर के पहले दिन को चिह्नित करने के लिए कौन-सा उत्सव मनाया जाता है?

(1) Losoong / लोसूंग (Losoong)
(2) **Losar / लोसर (Losar) ✔**
(3) Saga Dawa / सागा दावा (Saga Dawa)
(4) Nyokum / न्योकुम (Nyokum)

Q.32 In which year was the first edition of the Key Indicators of the Labour Market (KILM) released by the Department of Statistics of the International Labour Organization (ILO)?

अंतर्राष्ट्रीय श्रम संगठन (ILO) के सांख्यिकी विभाग द्वारा श्रम बाजार के प्रमुख संकेतक (KILM) का पहला संस्करण किस वर्ष जारी किया गया था?

(1) 1995
(2) 2010
(3) 2005
(4) **1999 ✔**

Q.33 Which programme was launched by the Union Health Minister in March 2024 to provide assistance to small-scale entrepreneurs in setting up and expanding PM Bhartiya Janaushadhi Kendras?

मार्च 2024 में केंद्रीय स्वास्थ्य मंत्री द्वारा पीएम भारतीय जन औषधि केंद्रों की स्थापना और विस्तार में लघु- स्तरीय उद्यमियों को सहायता प्रदान करने के लिए कौन-सा कार्यक्रम शुरू किया गया?

(1) **Credit Assistance Program / ऋण सहायता कार्यक्रम (Credit Assistance Program) ✔**
(2) Make in India Programme / मेक इन इंडिया कार्यक्रम (Make in India Programme)
(3) PM Dhanvantari Scheme / पीएम धन्वंतरि योजना (PM Dhanvantari Scheme)
(4) Startup India Initiative / स्टार्टअप इंडिया पहल (Startup India Initiative)

Q.34 Match the following.
Rivers Tributaries
1) Indus
a. Yamuna
2) Ganga
b. Jhelum
3) Godavari
c. Manjira

निम्नलिखित को सुमेलित कीजिए।
नदियांसहायक नदियां
1) सिंधु
a. यमुना
2) गंगा
b. झेलम
3) गोदावरी
c. मांजरा

(1) 1-b, 2-a, 3-c ✔
(2) 1-c, 2-b, 3-a
(3) 1-c, 2-a, 3-b
(4) 1-a, 2-b, 3-c

Q.35 Where are the headquarters of the Office of the Registrar General and Census Commissioner, India, located?

भारत के महारजिस्ट्रार और जनगणना आयुक्त का कार्यालय का मुख्यालय कहाँ स्थित है?

(1) Kolkata / कोलकाता
(2) New Delhi / नई दिल्ली ✔
(3) Jaipur / जयपुर
(4) Pune / पुणे

Q.36 Individuals with the blood group ABO are an example of which of the following?

ABO रक्त समूह वाले व्यक्ति निम्नलिखित में से किसका उदाहरण हैं?

(1) Recessive dominance / अप्रभावी प्रभाविता
(2) Codominance / सहप्रभाविता ✔
(3) Dominance / प्रभाविता
(4) Incomplete dominance / अपूर्ण प्रभाविता

Q.37 Which plant tissue is responsible for the transport of water and minerals from the roots to other parts in plants?

पौधों में उनकी जड़ों से अन्य अंगों तक जल और खनिज लवणों के परिवहन हेतु कौन-सा पादप ऊतक उत्तरदायी होता है?

(1) Phloem / फ्लोएम
(2) Mesenchymal tissue / मीजेन्काइमल ऊतक
(3) Cambium / कैम्बियम
(4) Xylem / जाइलम ✔

QuickSarkari.com | WhatsApp Channel | Telegram: t.me/quick_sarkari

Q.38 Which of the following Articles of the Constitution are related to the Eighth Schedule?
संविधान के निम्नलिखित में से कौन-से अनुच्छेद, आठवीं अनुसूची से संबंधित हैं?

(1) Articles 352 and 356 / अनुच्छेद 352 और 356
(2) Articles 348 and 350 / अनुच्छेद 348 और 350
(3) Articles 344(1) and 351 / अनुच्छेद 344(1) और 351 ✔
(4) Articles 343 and 345 / अनुच्छेद 343 और 345

Q.39 The Tapi river flows parallel to which of the following rivers?
तापी नदी निम्नलिखित में से किस नदी के समानांतर बहती है?

(1) Godavari / गोदावरी
(2) Indus / सिंधु
(3) Narmada / नर्मदा ✔
(4) Brahmaputra / ब्रह्मपुत्र

Q.40 In February 2024, who became the second Indian cricketer to take 500 wickets in Test matches after dismissing Zak Crawley in Rajkot?
फरवरी 2024 में, राजकोट में जैक क्रॉली को आउट करने के बाद टेस्ट मैचों में 500 विकेट लेने वाला दूसरा भारतीय क्रिकेटर कौन बना?

(1) Mohammed Shami / मोहम्मद शमी
(2) Ravichandran Ashwin / रविचंद्रन अश्विन ✔
(3) Jasprit Bumrah / जसप्रीत बुमराह
(4) Ravindra Jadeja / रवींद्र जडेजा

Numerical Aptitude and Data Interpretation

Q.41 If a/b = 4/3 , then find the value of $[a^2 + b^2]/[a^2 - b^2]$
.
यदि a/b = 4/3 है, तो $[a^2 + b^2]/[a^2 - b^2]$
का मान ज्ञात किजिए।

(1) 22/3
(2) 25/7 ✔
(3) 22/4
(4) 25/8

Q.42 At what annual rate of simple interest (in percentage) will a sum of money double itself in 10 years?
कोई धनराशि साधारण ब्याज की किस वार्षिक दर (प्रतिशत में) से 10 वर्षों में स्वयं की दोगुनी हो जाएगी?

(1) 9
(2) 19
(3) 10 ✔
(4) 20

Q.43 Study the graph carefully and answer the question that follows.
The following line graph shows the income and expenditure (in ₹ hundreds) of Mohan during the first six months of a year.

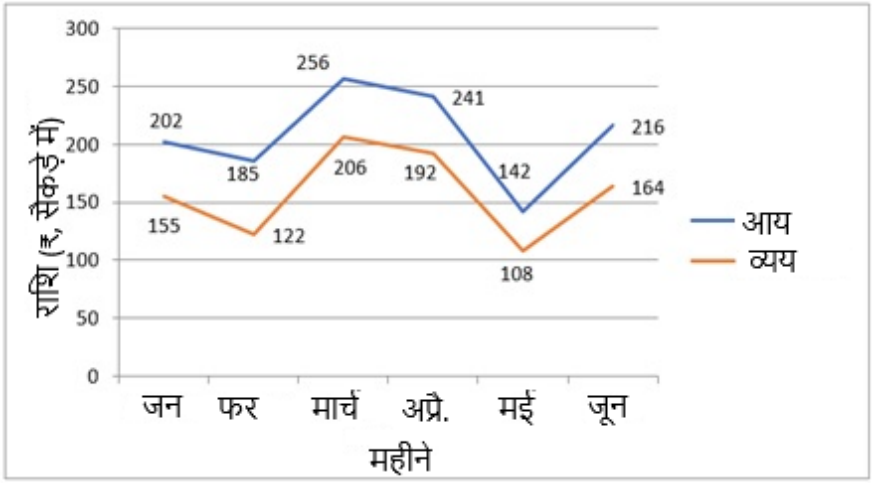

In which month were Mohan's savings the maximum?

ग्राफ का ध्यानपूर्वक अध्ययन कीजिए और नीचे दिए गए प्रश्न का उत्तर दीजिए।
निम्नांकित रेखा ग्राफ, एक वर्ष के पहले छह महीनों के दौरान मोहन की आय और व्यय (₹, सैकड़े में) को दर्शाता है।
किस महीने में मोहन की बचत अधिकतम थी?

(1) April / अप्रैल
(2) March / मार्च
(3) **February / फरवरी ✔**
(4) June / जून

Q.44 Ram can complete a work in 25 days and Yogi completes the same work in 35 days. They start working and work together for a few days and then Ram leaves the work. Yogi completes the remaining work in 23 days. For how many days did they work together?

राम एक काम 25 दिनों में पूरा कर सकता है और योगी उसी काम को 35 दिनों में पूरा करता है। वे काम करना शुरू करते हैं और कुछ दिनों तक एकसाथ काम करते हैं और फिर राम काम छोड़ देता है। शेष काम योगी 23 दिनों में पूरा करता है। उन्होंने साथ मिलकर कितने दिन काम किया था?

(1) 8 days / 8 दिन
(2) **5 days / 5 दिन ✔**
(3) 6 days / 6 दिन
(4) 9 days / 9 दिन

Q.45 A man bought two varieties of guavas, one at the rate of 7 guavas for ₹6 and the other at the rate of ₹6 per guava. He bought an equal number of guavas of each variety and sold all the guavas at the rate of ₹6 per guava. Find his profit percentage.

एक आदमी ने दो किस्म के अमरूद खरीदे, एक ₹6 में 7 अमरूद की दर से और दूसरे ₹6 प्रति अमरूद की दर से। उसने प्रत्येक किस्म के बराबर अमरूद खरीदे और सभी अमरूद ₹6 प्रति अमरूद की दर से बेच दिए। उसका लाभ प्रतिशत ज्ञात कीजिए।

(1) **75% ✔**
(2) 80%
(3) 72%
(4) 76%

QuickSarkari.com | WhatsApp Channel | Telegram: t.me/quick_sarkari

Q.46 A and B both participate in a 200 m race. A runs at a speed of 8 km/hr. A gives B a start of 8 m and still beats him by 6 seconds. Find the speed of B.

A और B दोनों 200 m की रेस में भाग लेते हैं। A, 8 km/hr की चाल से दौड़ता है। A, B को 8 m की बढ़त देता है और फिर भी उसे 6 सेकंड से हरा देता है। B की चाल ज्ञात कीजिए।

(1) 7.68 km/hr

(2) 7.5 km/hr

(3) 8.2 km/hr

(4) 7.2 km/hr ✔

Q.47 The marked price of a table is ₹2,360. If it is sold at a discount of 25%, what will be the selling price of the table?

एक मेज का अंकित मूल्य ₹2,360 है। यदि इसे 25% की छूट पर बेचा जाए, तो मेज का विक्रय मूल्य कितना होगा?

(1) ₹1,790

(2) ₹1,785

(3) ₹1,775

(4) ₹1,770 ✔

Q.48 Ramesh, Riya and Siya can complete a work separately in 12, 18 and 24 days, respectively. They started the work together, but Riya stopped working 4 days before the completion of the work, and Siya stopped working 6 days before the completion of the work. How much time will it take to complete the work?

रमेश, रिया और सिया एक काम को अलग-अलग क्रमशः 12, 18 और 24 दिनों में पूरा कर सकते हैं। उन्होंने साथ मिलकर काम शुरू किया, लेकिन रिया ने काम पूरा होने से 4 दिन पहले काम करना बंद कर दिया, और सिया ने काम पूरा होने से 6 दिन पहले काम करना बंद कर दिया। काम पूरा होने में कितना समय लगेगा?

(1) 8 2/3 days / 8 2/3 दिन ✔

(2) 9 1/3 days / 9 1/3 दिन

(3) 8 1/3 days / 8 1/3 दिन

(4) 9 2/3 days / 9 2/3 दिन

Q.49 The average of 13 numbers is 8. If each number is multiplied by 6, what will be the new average?

13 संख्याओं का औसत 8 है। यदि प्रत्येक संख्या को 6 से गुणा कर दिया जाए, तो नया औसत क्या होगा?

(1) 13

(2) 6

(3) 48 ✔

(4) 8

Q.50 Three bells ring at intervals of 24 seconds, 60 seconds and 72 seconds, respectively. If all three bells ring together at 10:00 a.m., when will they ring together next?

तीन घंटियाँ क्रमशः 24 सेकंड, 60 सेकंड और 72 सेकंड के अंतराल पर बजती हैं। यदि तीनों घंटियाँ 10:00 a.m. पर एक साथ बजती हैं, तो वे अगली बार एक साथ कब बजेंगी?

(1) 10:05 a.m.

(2) 10:04 a.m.

(3) 10:07 a.m.

(4) 10:06 a.m. ✔

Q.51 A sum of money invested at a certain rate of compound interest per annum amounts to ₹12,500 in 1 year and ₹13,500 in 2 years. Find the annual rate of interest.

किसी धनराशि को एक निश्चित वार्षिक चक्रवृद्धि ब्याज दर पर निवेश करने से वह 1 वर्ष में ₹12,500 और 2 वर्षों में ₹13,500 हो जाती है। वार्षिक ब्याज दर ज्ञात कीजिए।

(1) 8% ✔

(2) 9%

(3) 7%

(4) 10%

Q.52 The ratio of milk and water in the mixture bought from a milkman is 2 : 1. If 3 litres of water is added to 12 litres of the mixture bought from the milkman, what will be the percentage of water in the new mixture? (Rounded off to two decimal places)

दूधवाले से खरीदे गए मिश्रण में दूध और पानी का अनुपात 2 : 1 है। यदि दूधवाले से खरीदे गए 12 लीटर मिश्रण में 3 लीटर पानी मिला दिया जाए, तो नए मिश्रण में पानी का प्रतिशत कितना होगा?
(दो दशमलव स्थानों तक पूर्णांकित)

(1) 53.33%

(2) 41.67%

(3) 46.67% ✔

(4) 64.67%

Q.53 The volume of a triangular prism is 2112 cm^3. If the length of the base of the prism is 12 cm and the corresponding height of the triangle forming its base is 16 cm, then find the corresponding height of the prism.

एक त्रिभुजाकार प्रिज्म का आयतन 2112 cm^3 है। यदि प्रिज्म के आधार की लंबाई 12 cm है और इसका आधार बनाने वाले त्रिभुज की संगत ऊँचाई 16 cm है, तो प्रिज्म की संगत ऊँचाई ज्ञात कीजिए।

(1) 22 cm ✔

(2) 20 cm

(3) 23 cm

(4) 21 cm

Q.54 A train moving at a speed of 90 km/hr crosses a pole on a platform in 20 seconds. Find the length of the train (in m).

90 km/hr की चाल से गतिमान एक रेलगाड़ी प्लेटफार्म पर लगे एक खंभे को 20 सेकंड में पार करती है।
रेलगाड़ी की लंबाई (m में) ज्ञात कीजिए।

(1) 494

(2) 472

(3) 500 ✔

(4) 480

Q.55 A vegetable seller named Ramesh sells tomatoes at a profit of 18%. During the sale, he also uses a faulty weight which is 12% less than the actual weight. What will be his overall profit percentage (rounded off to 2 decimal places)?

रमेश नामक एक सब्ज़ी विक्रेता 18% लाभ पर टमाटर बेचता है। बिक्री के दौरान वह गलत बाट का भी उपयोग करता है, जो वास्तविक वज़न से 12% कम है। उसका कुल लाभ प्रतिशत (दशमलव के 2 अंकों तक पूर्णांकित) कितना होगा?

(1) 39.48%

(2) 28.12%

(3) 46.32%

(4) 34.09% ✔

Q.56 The temperature of the ocean surface is 15°C. At 1500 metres below the ocean surface, the temperature is 5°C. If the temperature decreases at a constant rate with every metre increase in depth, then how much will the temperature decrease (in ^{o}C) for every 150 metres of depth in the ocean?

महासागरीय सतह का तापमान 15°C है। महासागर की सतह से 1500 मीटर नीचे, तापमान 5°C है। यदि प्रति मीटर गहराई बढ़ने पर, तापमान एक स्थिर दर से घटता है, तो महासागर में प्रति 150 मीटर की गहराई में तापमान में कितनी कमी (^{o}C में) आएगी?

(1) 1 ✔

(2) 3

(3) 4

(4) 2

Q.57 The radius of the base of a solid cylindrical wooden block is 12 cm and its height is 16 cm. A conical cavity having the same base radius and the same height as the cylindrical block is cut out. Find the total surface area (in cm^2) of the remaining solid. [Take $\pi = 3.14$]

एक ठोस बेलनाकार लकड़ी के गुटके के आधार की त्रिज्या 12 cm और ऊँचाई 16 cm है। बेलनाकार गुटके की समान आधार त्रिज्या और समान ऊँचाई वाला एक शंक्वाकार गुहा काटा गया है। शेष ठोस का सम्पूर्ण पृष्ठीय क्षेत्रफल (cm^2 में) ज्ञात कीजिए। [$\pi = 3.14$ लीजिए]

(1) 2011.42

(2) 2311.25

(3) 2411.52 ✔

(4) 2410.52

Q.58 The average of 13 numbers is 7. If each number is multiplied by 8, what will be the new average?

13 संख्याओं का औसत 7 है। यदि प्रत्येक संख्या को 8 से गुणा कर दिया जाए, तो नया औसत क्या होगा?

(1) 7

(2) 56 ✔

(3) 13

(4) 8

Q.59 The price of wheat increased by 16.8%. By what percentage (rounded off to 1 decimal place) should a housewife reduce her consumption so that her expenditure on wheat does not increase?

गेहूँ की कीमत में 16.8% की वृद्धि हुई। एक गृहिणी को अपनी खपत में कितने प्रतिशत (दशमलव के बाद 1 अंक तक पूर्णांकित) की कमी करनी चाहिए, ताकि गेहूँ पर उसके खर्च में वृद्धि न हो?

(1) 13.5%

(2) 14.4% ✔

(3) 15.4%

(4) 10.5%

Q.60 48 men can dig a pit in 14 days. In how many days will 28 men be able to dig a pit of the same size?
48 आदमी एक गड्ढा 14 दिन में खोद सकते हैं। 28 आदमी समान आकार का गड्ढा कितने दिन में खोद पाएंगे?

(1) 24 ✔
(2) 10
(3) 48
(4) 12

English Language and Comprehension

Q.61 Sentences of a paragraph are given below in jumbled order. Arrange the sentences in the correct order to form a meaningful and coherent paragraph.
A. This is facilitated by the fact that humans are not the natural prey of any venomous snake.
B. Cobras are recognised by the hoods that they flare when angry or disturbed; the hoods are created by the extension of the ribs behind the cobras' heads.
C. We are a bit large for them to swallow whole, and they have no means of chopping us up into bite-size pieces.
D. The Indian cobra is the common name for members of the family of venomous snakes, known for their intimidating looks and deadly bite.
E. Obviously the best prevention is to avoid getting bitten.

(1) BCADE
(2) EADCB
(3) DBEAC ✔
(4) ADCBE

Q.62 Select the most appropriate option to fill in the blank.
He decided to study biology, _____ he had always been fascinated by living organisms.

(1) but
(2) so
(3) for ✔
(4) nor

Q.63 Identify the INCORRECTLY spelt word in the given sentence.
The lackadaisical attitude of the team kept them stuck in the doldrums, while their competitors, driven and energetic, thrived in the ubiquitious excitement of the boisterous crowd.

(1) doldrums
(2) ubiquitious ✔
(3) boisterous
(4) lackadaisical

Q.64 Select the most appropriate synonym of the underlined word to fill in the blank.
Savant: His writing style is florid, full of embellished language.
Hemant: Yes, it is something more _____.

(1) unadorned
(2) ingenuous
(3) austere
(4) ornate ✔

Q.65 Select the most appropriate idiom that can substitute the underlined segment in the given sentence.
Don't be in a hurry to respond to that rude email from your boss, do not take action without thinking about it first.

(1) cold shoulder
(2) nurse a grudge
(3) turn tables
(4) **hold your horses ✔**

Q.66 Select the option that can be used as a one-word substitute for the underlined group of words/phrase in the given sentence.
In spite of his age, he has a lot of energy and enthusiasm for life.

(1) **vim and vigour ✔**
(2) flashes in the pan
(3) done deals
(4) raw deals

Q.67 Select the option that can be used as a one-word substitute for the underlined segment in the given passage.
History is rife with examples of individuals who, for various reasons, chose to betray their own people and collaborate with an enemy. Such a person is often branded a(an) traitor who collaborates with an occupying enemy force. Whether driven by personal ambition, a warped sense of ideology or sheer cowardice in the face of adversity, they become a symbol of ultimate betrayal, forever marked by their willingness to side with the oppressor against their own nation.

(1) bigot
(2) anarchist
(3) **quisling ✔**
(4) cynosure

Q.68 Rectify the sentence by selecting the correct spelling of the highlighted word from the given options.
The shrewd team members took percautionary measures before starting the experiment.

(1) precausionary
(2) **precautionary ✔**
(3) precausionery
(4) precautionery

Q.69 Select the most appropriate synonym of the underlined word to fill in the blank.
Savant: The teacher's clarification was lucid and easy to grasp.
Hemant: Yes, I thought it was also _____ and easy to digest.

(1) ambiguous
(2) enigmatic
(3) obstruse
(4) **distinct ✔**

Q.70 Select the most appropriate option to fill in the blank.
If they _____ the technology earlier, their growth trajectory would have been different.

(1) adopting
(2) **had adopted ✔**
(3) adopts
(4) adopt

Q.71 Sentences of a paragraph are given below in jumbled order. Arrange the sentences in the correct order to form a meaningful and coherent paragraph.
A. Although this physical reaction will help us function more effectively when we are under pressure for short periods of time, it can be extremely damaging to the body in terms of long-term effects.
B. These hormones produce marked changes in heart rate, blood pressure levels, metabolism and physical activity.
C. When the human body is placed under physical or psychological stress, it increases the production of certain hormones, such as adrenaline and cortisol.
D. Examples of physiological effects are slowing down of the digestive system, increased heart rate and constriction of blood vessels.

(1) **CBAD ✔**
(2) DBCA
(3) ADCB
(4) BDAC

Q.72 Select the most appropriate question tag to fill in the blank.
They are planning to visit Kashmir, _____?

(1) won't they
(2) don't they
(3) **aren't they ✔**
(4) do they

Q.73 Select the option that can be used as a one-word substitute for the given group of words.
A government run by the wealthy

(1) Aristocracy
(2) **Plutocracy ✔**
(3) Oligarchy
(4) Bureaucracy

Q.74 Select the most appropriate option to fill in the blank.
The novel was _____ written, capturing the complex emotions of its characters.

(1) most beautiful
(2) more beautiful
(3) beautiful
(4) **beautifully ✔**

QuickSarkari.com | WhatsApp Channel | Telegram: t.me/quick_sarkari

Q.75 Select the most appropriate question tag to fill in the blank.
Under no circumstances should you divulge confidential information, _____?

(1) would you
(2) **should you ✔**
(3) did you
(4) are you

Q.76

Read the given passage and answer the questions that follow.
American literature has undergone a profound transformation from its early colonial roots to its present-day complexity. The initial literary works, often theological in nature, reflected the Puritan settlers' rigid worldview, emphasising moral rectitude and divine providence. Writers such as Jonathan Edwards and Anne Bradstreet used their prose and poetry to navigate religious devotion and personal introspection. However, as the colonies moved towards independence, literature took on a more political tone, with figures like Thomas Paine and Benjamin Franklin using rhetorical finesse to galvanise revolutionary sentiment.

The 19th century marked a period of literary expansion, as American authors sought to carve a distinct identity apart from European influences. Romanticism flourished with writers like Nathaniel Hawthorne and Edgar Allan Poe, whose works explored psychological depth, human fallibility and gothic sensibilities. Simultaneously, transcendentalists such as Ralph Waldo Emerson and Henry David Thoreau championed individualism and nature's spiritual significance. By the latter half of the century, realism emerged as a counterpoint to romantic idealism, with Mark Twain and Henry James depicting life's intricacies through meticulous detail and social critique.

The 20th century saw American literature fracture into numerous stylistic and thematic branches. Modernist writers like TS Eliot and William Faulkner experimented with fragmented narratives and

Which of the following best describes the structure of the passage?

(1) **It presents a chronological progression of American literature. ✔**
(2) It critiques the impact of technological advancements on literature.
(3) It focuses on modern American literary movements.
(4) It contrasts American and European literature in various periods.

Q.77

Read the given passage and answer the questions that follow.

American literature has undergone a profound transformation from its early colonial roots to its present-day complexity. The initial literary works, often theological in nature, reflected the Puritan settlers' rigid worldview, emphasising moral rectitude and divine providence. Writers such as Jonathan Edwards and Anne Bradstreet used their prose and poetry to navigate religious devotion and personal introspection. However, as the colonies moved towards independence, literature took on a more political tone, with figures like Thomas Paine and Benjamin Franklin using rhetorical finesse to galvanise revolutionary sentiment.

The 19th century marked a period of literary expansion, as American authors sought to carve a distinct identity apart from European influences. Romanticism flourished with writers like Nathaniel Hawthorne and Edgar Allan Poe, whose works explored psychological depth, human fallibility and gothic sensibilities. Simultaneously, transcendentalists such as Ralph Waldo Emerson and Henry David Thoreau championed individualism and nature's spiritual significance. By the latter half of the century, realism emerged as a counterpoint to romantic idealism, with Mark Twain and Henry James depicting life's intricacies through meticulous detail and social critique.

The 20th century saw American literature fracture into numerous stylistic and thematic branches. Modernist writers like TS Eliot and William Faulkner experimented with fragmented narratives and

According to the passage, which of the following factors influenced American literature's shift towards a political tone?

(1) The influence of transcendentalists such as Ralph Waldo Emerson

(2) **The movement towards American independence ✔**

(3) The development of Harlem Renaissance

(4) The expansion of literary realism and European influences

QuickSarkari

Q.78

Read the given passage and answer the questions that follow.

American literature has undergone a profound transformation from its early colonial roots to its present-day complexity. The initial literary works, often theological in nature, reflected the Puritan settlers' rigid worldview, emphasising moral rectitude and divine providence. Writers such as Jonathan Edwards and Anne Bradstreet used their prose and poetry to navigate religious devotion and personal introspection. However, as the colonies moved towards independence, literature took on a more political tone, with figures like Thomas Paine and Benjamin Franklin using rhetorical finesse to galvanise revolutionary sentiment.

The 19th century marked a period of literary expansion, as American authors sought to carve a distinct identity apart from European influences. Romanticism flourished with writers like Nathaniel Hawthorne and Edgar Allan Poe, whose works explored psychological depth, human fallibility and gothic sensibilities. Simultaneously, transcendentalists such as Ralph Waldo Emerson and Henry David Thoreau championed individualism and nature's spiritual significance. By the latter half of the century, realism emerged as a counterpoint to romantic idealism, with Mark Twain and Henry James depicting life's intricacies through meticulous detail and social critique.

The 20th century saw American literature fracture into numerous stylistic and thematic branches. Modernist writers like TS Eliot and William Faulkner experimented with fragmented narratives and

Select the most appropriate ANTONYM of the word 'rectitude' as used in the passage.

(1) Insouciance

(2) **Turpitude ✔**

(3) Obfuscation

(4) Opprobrium

QuickSarkari.com | WhatsApp Channel | Telegram: t.me/quick_sarkari

Q.79

Read the given passage and answer the questions that follow.

American literature has undergone a profound transformation from its early colonial roots to its present-day complexity. The initial literary works, often theological in nature, reflected the Puritan settlers' rigid worldview, emphasising moral rectitude and divine providence. Writers such as Jonathan Edwards and Anne Bradstreet used their prose and poetry to navigate religious devotion and personal introspection. However, as the colonies moved towards independence, literature took on a more political tone, with figures like Thomas Paine and Benjamin Franklin using rhetorical finesse to galvanise revolutionary sentiment.

The 19th century marked a period of literary expansion, as American authors sought to carve a distinct identity apart from European influences. Romanticism flourished with writers like Nathaniel Hawthorne and Edgar Allan Poe, whose works explored psychological depth, human fallibility and gothic sensibilities. Simultaneously, transcendentalists such as Ralph Waldo Emerson and Henry David Thoreau championed individualism and nature's spiritual significance. By the latter half of the century, realism emerged as a counterpoint to romantic idealism, with Mark Twain and Henry James depicting life's intricacies through meticulous detail and social critique.

The 20th century saw American literature fracture into numerous stylistic and thematic branches. Modernist writers like TS Eliot and William Faulkner experimented with fragmented narratives and

Based on the passage, which of the following can be inferred about postmodern American literature?

(1) It rejects earlier literary movements and reinvents itself.

(2) It challenges the reliability of established narratives. ✔

(3) It embraces a traditional narrative style.

(4) It primarily focuses on political themes.

QuickSarkari

Q.80

Read the given passage and answer the questions that follow.
American literature has undergone a profound transformation from its early colonial roots to its present-day complexity. The initial literary works, often theological in nature, reflected the Puritan settlers' rigid worldview, emphasising moral rectitude and divine providence. Writers such as Jonathan Edwards and Anne Bradstreet used their prose and poetry to navigate religious devotion and personal introspection. However, as the colonies moved towards independence, literature took on a more political tone, with figures like Thomas Paine and Benjamin Franklin using rhetorical finesse to galvanise revolutionary sentiment.

The 19th century marked a period of literary expansion, as American authors sought to carve a distinct identity apart from European influences. Romanticism flourished with writers like Nathaniel Hawthorne and Edgar Allan Poe, whose works explored psychological depth, human fallibility and gothic sensibilities. Simultaneously, transcendentalists such as Ralph Waldo Emerson and Henry David Thoreau championed individualism and nature's spiritual significance. By the latter half of the century, realism emerged as a counterpoint to romantic idealism, with Mark Twain and Henry James depicting life's intricacies through meticulous detail and social critique.

The 20th century saw American literature fracture into numerous stylistic and thematic branches. Modernist writers like TS Eliot and William Faulkner experimented with fragmented narratives and

Which of the following literary movements is identified in the passage as a reaction against Romanticism?

(1) Transcendentalism
(2) Gothic Fiction
(3) Modernism
(4) **Realism ✔**

Hindi Language and Comprehension

Q.81 निम्नलिखित लोकोक्ति का सही अर्थ पहचानें।
न सावन सूखा न भादो हरा।

(1) सावन के न आने पर पेड़ सुख जाते हैं।
(2) बारिश से हरियाली हो जाती है।
(3) **सदैव एक सा बना रहना। ✔**
(4) सावन के आने पर सूखा दूर हो जाता है।

Q.82 उचित कारक चिह्न से दिए गए वाक्य के रिक्त स्थान पूर्ण करें-- ज़ोहेब ने घर ____ अलमारी से समीर के लिए हाथ _____ चादर निकाली।

(1) **में, से ✔**
(2) से, द्वारा
(3) पर, में
(4) के, से

Q.83 निम्नलिखित वाक्य को कारक द्वारा पूर्ण करें।
कहीं तुम दीपा ____ यह साड़ी तो नहीं ले रहीं।

(1) को
(2) **के लिए ✔**
(3) ने
(4) पर

Q.84 निम्नलिखित वाक्य में रेखांकित शब्द के स्थान पर कोई अन्य सही पर्यायवाची शब्द दिए गए विकल्पों में से चुनिए- प्रायश्चित से पाप खत्म नहीं होता।

(1) धूम
(2) **पछतावा ✔**
(3) पाप
(4) निश्चित

Q.85 निम्नलिखित वाक्य को कारक द्वारा पूर्ण करें।
मैंने रवि ____खिचड़ी बनाई है।

(1) **हेतु ✔**
(2) द्वारा
(3) को
(4) से

Q.86 निम्नलिखित वाक्यों को उचित क्रम में लिखें।
1 है वह ठीक हो गया है 2 जिस जिस व्यक्ति ने 3 का कोर्स पूरा किया 4 इस बीमारी की दवा

(1) 3 1 4 2
(2) 2 3 1 4
(3) 1 4 2 3
(4) **2 4 3 1 ✔**

Q.87 निम्नलिखित मुहावरे का उचित अर्थ बताएं।
घोड़े बेचकर सोना।

(1) आराम करना।
(2) समय बर्बाद करना।
(3) **बेफिक्र होना। ✔**
(4) सुख का अनुभव करना।

Q.88 'पर्वत के नीचे की भूमि " वाक्यांश के लिए उपयुक्त शब्द होगा-

(1) भूधर
(2) अप्रमेय
(3) **उपत्यका ✔**
(4) अधित्यका

Q.89 वह बालक _____ बैल है।

(1) **निरा ✔**
(2) सब
(3) हम
(4) गाय

Q.90 निम्नलिखित वाक्य को उचित कारक द्वारा पूर्ण करें।
तुम यहाँ फर्श ____ ऐसे क्यों बैठे हो।

(1) आह!
(2) **पर ✔**
(3) ने
(4) से

QuickSarkari.com | WhatsApp Channel | Telegram: t.me/quick_sarkari

Q.91 निम्नलिखित वाक्य में रेखांकित शब्द के स्थान पर कोई अन्य सही पर्यायवाची शब्द दिए गए विकल्पों में से चुनिए- वर्षा के अनन्तर एक दो दिन में ही पृथ्वी का पानी अगोचर हो जाता है।

(1) अंतर

(2) प्रतीक्षा

(3) बाद ✔

(4) अतः

Q.92 वर्तनी की दृष्टि से दिए गए विकल्पों में से शुद्ध वाक्य का चयन करें-

(1) भाइयों में आपसी वैमनस्य है। ✔

(2) भाईयों में बैमनस्यता आपस में है।

(3) भाइयो में आपस वेमनस्य है।

(4) भाई - भाई में वेमनस्यत्व भाव है।

Q.93 वर्तनी की दृष्टि से दिए गए वाक्य के किस अंश में त्रुटि है ?
अंग्रेज़ों ने ओद्योगिक उन्नति-प्रगति का भारत में केवल आडम्बर खड़ा किया था।

(1) उन्नति-प्रगति का

(2) भारत में केवल

(3) आडम्बर खड़ा किया था।

(4) अंग्रेज़ों ने ओद्योगिक ✔

Q.94 वाक्य क्रम में लिखिए- में नाटक भी (अ/ही माना गया है (ब/भारतीय साहित्यशास्त्र(स/काव्य के अंतर्गत(द।

(1) द ब स अ

(2) स ब अ द

(3) अ ब स द

(4) स अ द ब ✔

Q.95 जो मुक्ति प्राप्ति की इच्छा करे _____ उपरोक्त वाक्य खंड के लिए उपयुक्त शब्द चयन कीजिए।

(1) पारंगत

(2) वाचाल

(3) चिरस्थायी

(4) मुमुक्षु ✔

Q.96

दिए गए गद्यांश के आधार पर निम्नलिखित प्रश्नों का उत्तर दीजिए।
आधुनिक साहित्य में वस्तु-स्थिति-चित्रण की प्रवृत्ति इतनी बढ़ रही है कि आज की कहानी यथासम्भव प्रत्यक्ष अनुभवों की सीमा से बाहर नहीं जाती। हमें केवल इतना सोचने से ही संतोष नहीं होता कि मनोविज्ञान की दृष्टि से ये सभी पात्र मनुष्यों से मिले-जुलते हैं, बल्कि हम यह इत्मीनान चाहते हैं कि वे सचमुच मनुष्य हैं और लेखक ने यथासम्भव उनका जीवन-चरित्र ही लिखा है, क्योंकि कल्पना के गढ़े हुए आदमियों में हमारा विश्वास नहीं है, उनके कार्यो और विचारों से हम प्रभावित नहीं होते। हमें इसका निश्चय हो जाना चाहिए कि लेखक ने जो सृष्टि की है, वह प्रत्यक्ष अनुभवों के आधार पर की गई है और अपने पात्रों की ज़बान से वह खुद बोल रहा है। इसीलिए साहित्य को कुछ समालोचकों ने लेखक का मनोवैज्ञानिक जीवन-चरित्र कहा है।

निम्न में से मनुष्य का पर्यायवाची क्या नहीं है?

(1) मानव

(2) नर

(3) जीव ✔

(4) मर्त्य

Q.97

दिए गए गद्यांश के आधार पर निम्नलिखित प्रश्नों का उत्तर दीजिए।
आधुनिक साहित्य में वस्तु-स्थिति-चित्रण की प्रवृत्ति इतनी बढ़ रही है कि आज की कहानी यथासम्भव प्रत्यक्ष अनुभवों की सीमा से बाहर नहीं जाती। हमें केवल इतना सोचने से ही संतोष नहीं होता कि मनोविज्ञान की दृष्टि से ये सभी पात्र मनुष्यों से मिले-जुलते हैं, बल्कि हम यह इत्मीनान चाहते हैं कि वे सचमुच मनुष्य हैं और लेखक ने यथासम्भव उनका जीवन-चरित्र ही लिखा है, क्योंकि कल्पना के गढ़े हुए आदमियों में हमारा विश्वास नहीं है, उनके कार्यों और विचारों से हम प्रभावित नहीं होते। हमें इसका निश्चय हो जाना चाहिए कि लेखक ने जो सृष्टि की है, वह प्रत्यक्ष अनुभवों के आधार पर की गई है और अपने पात्रों की ज़बान से वह खुद बोल रहा है। इसीलिए साहित्य को कुछ समालोचकों ने लेखक का मनोवैज्ञानिक जीवन-चरित्र कहा है।

उपर्युक्त गद्यांश का उचित सारांश निम्न में से क्या होगा?

(1) साहित्य को यथार्थवादी होना चाहिए ✔
(2) साहित्य को उपयोगितावादी होना चाहिए
(3) साहित्य को कल्पनाशील होना चाहिए
(4) साहित्य को आदर्शवादी होना चाहिए

Q.98

दिए गए गद्यांश के आधार पर निम्नलिखित प्रश्नों का उत्तर दीजिए।
आधुनिक साहित्य में वस्तु-स्थिति-चित्रण की प्रवृत्ति इतनी बढ़ रही है कि आज की कहानी यथासम्भव प्रत्यक्ष अनुभवों की सीमा से बाहर नहीं जाती। हमें केवल इतना सोचने से ही संतोष नहीं होता कि मनोविज्ञान की दृष्टि से ये सभी पात्र मनुष्यों से मिले-जुलते हैं, बल्कि हम यह इत्मीनान चाहते हैं कि वे सचमुच मनुष्य हैं और लेखक ने यथासम्भव उनका जीवन-चरित्र ही लिखा है, क्योंकि कल्पना के गढ़े हुए आदमियों में हमारा विश्वास नहीं है, उनके कार्यों और विचारों से हम प्रभावित नहीं होते। हमें इसका निश्चय हो जाना चाहिए कि लेखक ने जो सृष्टि की है, वह प्रत्यक्ष अनुभवों के आधार पर की गई है और अपने पात्रों की ज़बान से वह खुद बोल रहा है। इसीलिए साहित्य को कुछ समालोचकों ने लेखक का मनोवैज्ञानिक जीवन-चरित्र कहा है।

प्रस्तुत गद्यांश में किस बात पर अधिक बल दिया गया है?

(1) लेखक की रचना प्रक्रिया
(2) साहित्य में यथार्थ ✔
(3) साहित्य और विषय वस्तु
(4) साहित्य में कल्पना

Q.99

दिए गए गद्यांश के आधार पर निम्नलिखित प्रश्नों का उत्तर दीजिए।
आधुनिक साहित्य में वस्तु-स्थिति-चित्रण की प्रवृत्ति इतनी बढ़ रही है कि आज की कहानी यथासम्भव प्रत्यक्ष अनुभवों की सीमा से बाहर नहीं जाती। हमें केवल इतना सोचने से ही संतोष नहीं होता कि मनोविज्ञान की दृष्टि से ये सभी पात्र मनुष्यों से मिले-जुलते हैं, बल्कि हम यह इत्मीनान चाहते हैं कि वे सचमुच मनुष्य हैं और लेखक ने यथासम्भव उनका जीवन-चरित्र ही लिखा है, क्योंकि कल्पना के गढ़े हुए आदमियों में हमारा विश्वास नहीं है, उनके कार्यों और विचारों से हम प्रभावित नहीं होते। हमें इसका निश्चय हो जाना चाहिए कि लेखक ने जो सृष्टि की है, वह प्रत्यक्ष अनुभवों के आधार पर की गई है और अपने पात्रों की ज़बान से वह खुद बोल रहा है। इसीलिए साहित्य को कुछ समालोचकों ने लेखक का मनोवैज्ञानिक जीवन-चरित्र कहा है।

'मनोविज्ञान' शब्द का क्या अर्थ है?

(1) मानव का विज्ञान
(2) मानवीय विज्ञान
(3) आत्मा का विज्ञान
(4) मन का विज्ञान ✔

Q.100

दिए गए गद्यांश के आधार पर निम्नलिखित प्रश्नों का उत्तर दीजिए।
आधुनिक साहित्य में वस्तु-स्थिति-चित्रण की प्रवृत्ति इतनी बढ़ रही है कि आज की कहानी यथासम्भव प्रत्यक्ष अनुभवों की सीमा से बाहर नहीं जाती। हमें केवल इतना सोचने से ही संतोष नहीं होता कि मनोविज्ञान की दृष्टि से ये सभी पात्र मनुष्यों से मिले-जुलते हैं, बल्कि हम यह इत्मीनान चाहते हैं कि वे सचमुच मनुष्य हैं और लेखक ने यथासम्भव उनका जीवन-चरित्र ही लिखा है, क्योंकि कल्पना के गढ़े हुए आदमियों में हमारा विश्वास नहीं है, उनके कार्यों और विचारों से हम प्रभावित नहीं होते। हमें इसका निश्चय हो जाना चाहिए कि लेखक ने जो सृष्टि की है, वह प्रत्यक्ष अनुभवों के आधार पर की गई है और अपने पात्रों की ज़बान से वह खुद बोल रहा है। इसीलिए साहित्य को कुछ समालोचकों ने लेखक का मनोवैज्ञानिक जीवन-चरित्र कहा है।

निम्न में से 'प्रत्यक्ष' का विलोम शब्द क्या है?

(1) प्रकट
(2) प्रमुख
(3) प्रथम
(4) परोक्ष ✔

Geography

Q.101 Detritivores are organisms that _____.
अपरदाहारी वे जीव होते हैं जो _____।

(1) consume only plants / केवल पादपों का उपभोग करते हैं
(2) feed on dead and decaying organic matter / मृत और क्षयमान कार्बनिक पदार्थों पर भरण करते हैं ✔
(3) produce energy through photosynthesis / प्रकाश संश्लेषण के माध्यम से ऊर्जा उत्पन्न करते हैं
(4) hunt other animals for food / भोजन हेतु अन्य पशुओं का शिकार करते हैं

Q.102 At what rate does temperature decrease with height in the troposphere?
क्षोभमंडल में ऊंचाई के साथ तापमान किस दर से घटता है?

(1) 1°C per 100 m / 1°C प्रति 100 m
(2) 1°C per 500 m / 1°C प्रति 500 m
(3) 1°C per 165 m / 1°C प्रति 165 m ✔
(4) 0.5°C per 165 m / 0.5°C प्रति 165 m

Q.103 Which of the following is a direct impact of wind on agriculture?
निम्नलिखित में से कौन-सा, कृषि पर पवन का प्रत्यक्ष प्रभाव है?

(1) Dislodging of seed heads and fruits / बीज-शीर्षों और फलों का विस्थापित होना ✔
(2) Enhancement of soil fertility / मृदा उर्वरता में वृद्धि
(3) Reduction of soil moisture loss / मृदा नमी की हानि में कमी
(4) Acceleration of pollination / परागण में तीव्रता

Q.104 At which Conference of the Parties (COP) was the Warsaw Framework for REDD+, which provides guidelines for REDD+ implementation, adopted?
REDD+ के लिए वारसॉ फ्रेमवर्क, जो REDD+ कार्यान्वयन के लिए दिशानिर्देश प्रदान करता है, को किस कॉन्फ्रेंस ऑफ पार्टीज (COP) में अपनाया गया था?

(1) COP 15
(2) COP 13
(3) COP 19 ✔
(4) COP 21

Q.105 Which of the following is NOT a direct challenge to agriculture in India caused by terrain and topography?

भारत में कृषि के लिए भू-भाग और स्थलाकृति के कारण प्रत्यक्ष चुनौती निम्नलिखित में से कौन-सी नहीं है?

(1) Improvement in soil fertility / मृदा उर्वरता में सुधार ✔

(2) Soil erosion on steep slopes / खड़ी ढलानों पर मृदा अपरदन

(3) Difficulty in ploughing / जुताई में कठिनाई

(4) Obstacles to farm mechanisation / कृषि यंत्रीकरण में अवरोध

Q.106 According to Thornthwaite's classification, which of the following options describes a region having a moisture index between 0 and 20?

थॉर्नथवेट वर्गीकरण (Thornthwaite's classification) के अनुसार, निम्नलिखित में से कौन-सा विकल्प, 0 और 20 के बीच आर्द्रता सूचकांक वाले क्षेत्र का वर्णन करता है?

(1) Semi-arid / अर्ध-शुष्क (Semi-arid)

(2) Moist subhumid / नम उप-आर्द्र (Moist subhumid) ✔

(3) Dry subhumid / शुष्क उप-आर्द्र (Dry subhumid)

(4) Humid / आर्द्र (Humid)

Q.107 Which of the following groups are members of the Kingdom Protista?

निम्नलिखित में से कौन-से समूह, जगत प्रोटिस्टा के सदस्य हैं?

(1) Dinoflagellates, Bacteria, Viroids / डाइनोफ्लैजलेट्स, जीवाणु, वाइरॉइड्स

(2) Algae, Bryophytes, Gymnosperms / शैवाल, ब्रायोफाइट्स, जिम्नोस्पर्म्स

(3) Fungi, Lichens, Viruses / कवक, लाइकेन, विषाणु

(4) Euglenoids, Protozoans, Slime-moulds / युग्लीनॉइड्स, प्रोटोज़ोआ, अवपंक कवक ✔

Q.108 What is the percentage of argon (Ar) in dry atmosphere?

शुष्क वायुमंडल में, आर्गन (Ar) की मात्रा का प्रतिशत कितना होता है?

(1) 0.93% ✔

(2) 0.003%

(3) 0.0093%

(4) 9.3%

Q.109 Select the correct option regarding the following two statements labelled Assertion (A) and Reason (R).
Assertion (A): The empirical approach in agricultural geography focuses on what actually exists in the agricultural landscape.
Reason (R): It emphasises inductive methods and uses field data to build models through observation and generalisation.

अभिकथन (A) और कारण (R) से क्रमांकित निम्नलिखित दोनों कथनों के संबंध में सही विकल्प का चयन कीजिए।
अभिकथन (A): कृषि भूगोल में अनुभवमूलक उपागम इस पर केंद्रित होता है कि कृषि दृश्यभूमि पर वास्तव में क्या विद्यमान है।
कारण (R): यह प्रेरणिक विधियों पर बल देता है और पर्यवेक्षण एवं व्यापकीकरण के माध्यम से मॉडल बनाने के लिए क्षेत्रीय आंकड़ों का उपयोग करता है।

(1) A is true, but R is false. / A सत्य है, लेकिन R असत्य है।

(2) Both A and R are true, but R is not the correct explanation of A. / A और R दोनों सत्य हैं, लेकिन R, A की सही व्याख्या नहीं है।

(3) Both A and R are true, and R is the correct explanation of A. / A और R दोनों सत्य हैं, और R, A की सही व्याख्या है। ✔

(4) A is false, but R is true. / A असत्य है, लेकिन R सत्य है।

Q.110 Which of the following has the highest surface albedo?

निम्नलिखित में से किसकी सतह का एल्बिडो उच्चतम होता है?

(1) Water / जल

(2) Asphalt road / ऐस्फाल्ट सड़क

(3) Clouds / बादल

(4) **Fresh snow / ताज़ा बर्फ ✔**

Q.111 Select the option that is correct regarding the following two statements labelled Assertion (A) and Reason (R).

Assertion (A): Sub-polar low-pressure areas are formed mainly due to thermal heating.

Reason (R): The meeting of cold polar easterlies and warm westerlies causes air convergence and upliftment.

अभिकथन (A) और कारण (R) के रूप में क्रमांकित निम्नलिखित दोनों कथनों के संबंध में सही विकल्प का चयन कीजिए।

अभिकथन (A): उप-ध्रुवीय निम्न दाब क्षेत्र मुख्य रूप से तापीय उष्मन के कारण बनते हैं।

कारण (R): ठंडी ध्रुवीय पूर्वी पवनों और गर्म पछुआ पवनों के मिलने से वायु का अभिसरण और उत्थान होता है।

(1) **A is false, but R is true. / A असत्य है, लेकिन R सत्य है। ✔**

(2) Both A and R are true, but R is not the correct explanation of A. / A और R दोनों सत्य हैं, लेकिन R, A की सही व्याख्या नहीं है।

(3) A is true, but R is false. / A सत्य है, लेकिन R असत्य है।

(4) Both A and R are true, and R is the correct explanation of A. / A और R दोनों सत्य हैं, और R, A की सही व्याख्या है।

Q.112 What makes the study of biogeography dynamic in nature?

जैवभूगोल के अध्ययन को प्रकृति में गतिक क्या बनाता है?

(1) Invariable movement of tectonic plates / विवर्तनिक प्लेटों का अपरिवर्ती संचलन

(2) Seasonal changes in weather patterns / ऋतु पैटर्न में मौसमी परिवर्तन

(3) Recurrent volcanic activity and floods / आवर्ती ज्वालामुखी सक्रियता एवं बाढ़

(4) **Continuous changes in inorganic and organic components, especially due to human influence / विशेषकर मानव प्रभाव के कारण, अकार्बनिक और कार्बनिक घटकों में सतत परिवर्तन ✔**

Q.113 Lamarck's theory is also called the theory of:

लैमार्क के सिद्धांत को किसका सिद्धांत भी कहा जाता है?

(1) Natural selection / प्राकृतिक वरण

(2) Gene flow / जीन प्रवाह

(3) Mutation and selection / उत्परिवर्तन और वरण

(4) **Use and disuse of organs / अंगों का उपयोग और अनुपयोग ✔**

Q.114 Why is the subtropical high-pressure belt referred to as the 'horse latitudes'?

उपोष्ण उच्च दाब पेटी को 'अश्व अक्षांश (horse latitudes)' के रूप में क्यों संदर्भित किया जाता है?

(1) Due to the violent storms occurring in this region / इस क्षेत्र में आने वाले आक्रामक तूफानों के कारण

(2) **Due to dry, calm conditions and light variable winds / शुष्क, शांत परिस्थितियों और हल्की परिवर्ती पवनों के कारण ✔**

(3) Due to heavy rainfall and abundant vegetation / अधिक वर्षा और प्रभूत वनस्पति के कारण

(4) Because they are located near deserts / क्योंकि ये मरुस्थलों के निकट स्थित होते हैं

Q.115 According to Von Thunen's model, which zone is characterised by the highest agricultural intensity and no fallow land?

वॉन थुनेन मॉडल (Von Thunen's model) के अनुसार, किस ज़ोन की विशेषता सर्वाधिक कृषि गहनता और कोई परती भूमि न होना है?

(1) Zone-4 / ज़ोन-4

(2) Zone-5 / ज़ोन-5

(3) Zone-3 / ज़ोन-3 ✔

(4) Zone-1 / ज़ोन-1

Q.116 Mid-latitude cyclones usually form in which atmospheric condition?

मध्य-अक्षांशीय चक्रवात, प्राय: किस वायुमंडलीय स्थिति में बनते हैं?

(1) Areas of strong vertical wind shear / तेज ऊर्ध्वाधर पवन अपरूपण के क्षेत्र ✔

(2) Calm tropical conditions / शांत उष्णकटिबंधीय स्थितियां

(3) Areas with little or no temperature contrast / तापमान में बहुत कम विपर्यास या कोई विपर्यास नहीं वाले क्षेत्र

(4) Areas dominated by easterly winds / पूर्वी पवनों के प्रभुत्व वाले क्षेत्र

Q.117 What is the reason for the stratosphere being ideal for flying aircraft?

विमान उड़ाने के लिए समताप मंडल के आदर्श होने का कारण क्या है?

(1) It has relatively more oxygen / इसमें अपेक्षाकृत अधिक ऑक्सीजन होती है

(2) It has low gravity / इसमें गुरुत्वाकर्षण निम्न होता है

(3) It is free from weather disturbances and has stable air movement / यह मौसमी विक्षोभ से मुक्त होता है और इसमें स्थिर वायु संचलन होता है ✔

(4) It is relatively closer to the Earth's magnetic field / यह पृथ्वी के चुंबकीय क्षेत्र के अपेक्षाकृत अधिक निकट है

Q.118 Why is balanced fertiliser application often challenging in India?

भारत में संतुलित उर्वरक अनुप्रयोग प्रायः चुनौतीपूर्ण क्यों होता है?

(1) Because soil testing facilities are inadequate. / क्योंकि मृदा परीक्षण सुविधाएं अपर्याप्त हैं। ✔

(2) Because crops do not require balanced nutrients. / क्योंकि फसलों को संतुलित पोषक तत्वों की आवश्यकता नहीं होती है।

(3) Because fertilisers are available free of cost. / क्योंकि उर्वरक निःशुल्क प्राप्त होते हैं।

(4) Because Indian soils are naturally balanced. / क्योंकि भारतीय मृदा प्राकृतिक रूप से संतुलित है।

Q.119 What was the major contribution of the Green Revolution to Indian agriculture?

भारतीय कृषि में, हरित क्रांति का प्रमुख योगदान क्या था?

(1) Decline in the use of irrigation / सिंचाई के उपयोग में गिरावट

(2) Promotion of terrace farming / सीढ़ीनुमा कृषि का संवर्धन

(3) Introduction of organic farming / जैविक खेती की शुरुआत

(4) Adoption of high-yielding varieties and modern machinery / उच्च उपज देने वाली किस्मों और आधुनिक मशीनरी की स्वीकृति ✔

Q.120 What was considered the main cause of stagnation in Indian agriculture during the British period?

ब्रिटिश काल के दौरान भारतीय कृषि में प्रगतिरोध का मुख्य कारण किसे माना जाता था?

(1) Technological backwardness / तकनीकी पिछड़ापन

(2) Lack of irrigation facilities / सिंचाई सुविधाओं का अभाव

(3) Exploitative agrarian relations / शोषणकारी कृषिक संबंध ✔

(4) Land degradation / भू-क्षरण

Q.121 According to the Gravity Model of migration, migration between two places is more likely when it is:
प्रवास के गुरुत्व मॉडल (Gravity Model) के अनुसार, दो स्थानों के बीच प्रवास की संभावना तब अधिक होती है जब वह:

(1) directly proportional to the population size and inversely proportional to distance / जनसंख्या के आकार के अनुक्रमानुपाती और दूरी के व्युत्क्रमानुपाती हो ✔

(2) directly proportional to the distance and unrelated to population size / दूरी के अनुक्रमानुपाती हो और जनसंख्या के आकार से असंबंधित हो

(3) inversely proportional to population size / जनसंख्या के आकार के व्युत्क्रमानुपाती हो

(4) independent of distance and population size / दूरी और जनसंख्या के आकार से स्वतंत्र हो

Q.122 Which landform is formed due to the deposition of sediments at the mouth of a river?
नदी के मुहाने पर तलछट के निक्षेप के कारण कौन-सी भू-आकृति निर्मित होती है?

(1) Delta / डेल्टा (Delta) ✔

(2) Cliff / भृगु (Cliff)

(3) Peninsula / प्रायद्वीप (Peninsula)

(4) Plateau / पठार (Plateau)

Q.123 What does the study of spatial organisation in geography primarily focus on?
भूगोल में स्थानिक संगठन का अध्ययन मुख्य रूप से किस पर केंद्रित होता है?

(1) The economic development of regions / क्षेत्रों का आर्थिक विकास

(2) The pattern and process of geographical phenomena / भौगोलिक परिघटनाओं का प्रतिरूप और प्रक्रिया ✔

(3) The biological processes in ecosystems / पारितंत्रों में जैविक प्रक्रियाएँ

(4) The historical evolution of civilisations / सभ्यताओं का ऐतिहासिक विकास

Q.124 In which of the following Indian states does the summer monsoon rainfall occur first?
निम्नलिखित में से किस भारतीय राज्य में, सबसे पहले ग्रीष्मकालीन मानसून वर्षा होती है?

(1) Kerala / केरल ✔

(2) Maharashtra / महाराष्ट्र

(3) Tamil Nadu / तमिलनाडु

(4) Goa / गोवा

Q.125 Select the correct option regarding the following two statements labelled Assertion (A) and Reason (R).
Assertion (A): It is believed that the 1987 drought in India was caused by El-Niño.
Reason (R): El-Niño increases the surface temperature of the tropical Pacific Ocean, thereby affecting global wind and pressure systems, including the Indian monsoon.
अभिकथन (A) और कारण (R) से क्रमांकित निम्नलिखित दोनों कथनों के संबंध में सही विकल्प का चयन कीजिए।
अभिकथन (A): ऐसा माना जाता है कि भारत में 1987 का सूखा, अल-नीनो (El-Niño) के कारण पड़ा था।
कारण (R): अल-नीनो (El-Niño) उष्मकटिबंधीय प्रशांत महासागर के सतही ताप में वृद्धि करता है, जिससे भारतीय मानसून सहित वैश्विक पवन और दाब तंत्र प्रभावित होते हैं।

(1) A is true, but R is false. / A सत्य है, लेकिन R असत्य है।

(2) A is false, but R is true. / A असत्य है, लेकिन R सत्य है।

(3) Both A and R are true, and R is the correct explanation of A. / A और R दोनों सत्य हैं, तथा R, A की सही व्याख्या है। ✔

(4) Both A and R are true, but R is not the correct explanation of A. / A और R दोनों सत्य हैं, लेकिन R, A की सही व्याख्या नहीं है।

Q.126 Which of the following proposed the concept of Neo-Determinism?

निम्नलिखित में से किसने नव-नियतत्ववाद (Neo-Determinism) की अवधारणा का प्रस्ताव रखा?

(1) Friedrich Ratzel / फ्रेडरिक रैट्ज़ेल

(2) Vidal de la Blache / विडाल डी ला ब्लॉश

(3) Ellen Churchill Semple / एलेन चर्चिल सेम्पल

(4) **Griffith Taylor / ग्रिफ़िथ टेलर ✔**

Q.127 During the Classical period, which of the following regions became the centre of scientific advancement?

शास्त्रीय काल के दौरान, निम्नलिखित में से कौन-सा क्षेत्र वैज्ञानिक प्रगति का केंद्र बना?

(1) Persia / फारस

(2) **Greece / यूनान ✔**

(3) Rome / रोम

(4) Egypt / मिस्र

Q.128 How does mulching help in soil conservation?

पलवार (मल्चिंग) मृदा संरक्षण में किस प्रकार सहायता करती है?

(1) By increasing tillage frequency / जुताई की आवृत्ति बढ़ाकर

(2) By exposing soil to sunlight / मृदा को सूर्य के प्रकाश के संपर्क में लाकर

(3) By reducing moisture and erosion / नमी और अपरदन को कम करके

(4) **By conserving moisture and regulating temperature / नमी का संरक्षण करके और तापमान को नियंत्रित करके ✔**

Q.129 Read the given Assertion (A) and Reason (R) carefully and select the correct option.

Assertion (A): Spatial organisation seeks to understand patterns and processes of phenomena distributed on the earth's surface.

Reason (R): The concept of spatial organisation only focuses on regional uniqueness and not on interconnections between regions.

दिए गए अभिकथन (A) और कारण (R) को ध्यानपूर्वक पढ़िए और सही विकल्प का चयन कीजिए।

अभिकथन (A): स्थानिक संगठन, पृथ्वी की सतह पर वितरित परिघटनाओं के प्रतिरूपों और प्रक्रियाओं को समझने का प्रयास करता है।

कारण (R): स्थानिक संगठन की संकल्पना केवल क्षेत्रीय विशिष्टता पर केंद्रित होती है, न कि क्षेत्रों के बीच अंतर्संबंधों पर।

(1) **A is true, but R is false. / A सत्य है, लेकिन R असत्य है। ✔**

(2) Both A and R are true, and R is the correct explanation of A. / A और R दोनों सत्य हैं, और R, A की सही व्याख्या है।

(3) Both A and R are true, but R is not the correct explanation of A. / A और R दोनों सत्य हैं, लेकिन R, A की सही व्याख्या नहीं है।

(4) A is false, but R is true. / A असत्य है, लेकिन R सत्य है।

Q.130 Select the correct option regarding the following two statements labelled Assertion (A) and Reason (R).
Assertion (A): The south-west monsoon winds in India originate from the south-east trade winds of the southern hemisphere.
Reason (R): Due to the south-west monsoon, rainfall occurs on the Coromandel coast in early October.
अभिकथन (A) और कारण (R) के रूप में क्रमांकित निम्नलिखित दोनों कथनों के संबंध में सही विकल्प का चयन कीजिए।
अभिकथन (A): भारत में दक्षिण-पश्चिम मानसून पवनें, दक्षिणी गोलार्ध की दक्षिण-पूर्वी व्यापारिक पवनों से उत्पन्न होती हैं।
कारण (R): दक्षिण-पश्चिम मानसून के कारण, अक्टूबर की शुरुआत में कोरोमंडल तट पर वर्षा होती है।

(1) A is true, but R is false. / A सत्य है, लेकिन R असत्य है।

(2) Both A and R are true, but R is not the correct explanation of A. / A और R दोनों सत्य हैं, लेकिन R, A की सही व्याख्या नहीं है। ✔

(3) Both A and R are true, and R is the correct explanation of A. / A और R दोनों सत्य हैं, तथा R, A की सही व्याख्या है।

(4) A is false, but R is true. / A असत्य है, लेकिन R सत्य है।

Q.131 Which of the following statements about the Aravalli Range is true?
अरावली पर्वतमाला के बारे में निम्नलिखित में से कौन-सा कथन, सत्य है?

(1) It is a young fold mountain range formed in the Cenozoic Era. / यह नूतनजीन महाकल्प (Cenozoic Era) में निर्मित एक नवीन वलित पर्वतमाला है।

(2) It was formed due to the collision of the Indian and Eurasian plates during the Himalayan orogeny. / इसका निर्माण हिमालय पर्वतन के दौरान भारतीय और यूरेशियन प्लेटों के संघट्ट के कारण हुआ था।

(3) It is the result of recent volcanic activity in central India. / यह मध्य भारत में हाल ही में हुई ज्वालामुखी सक्रियता का परिणाम है।

(4) It is one of the oldest fold mountain systems of India, formed during the Aravalli-Delhi orogeny. / यह अरावली-दिल्ली पर्वतन के दौरान निर्मित भारत की सबसे पुराने वलित पर्वत तंत्रों में से एक है। ✔

Q.132 Economic characteristics of population include:
जनसंख्या की आर्थिक विशेषताओं में शामिल हैं:

(1) age distribution and social group affiliation / आयु वितरण और सामाजिक समूह संबद्धता

(2) labour force engagement and occupational classification / श्रम बल संलग्नता और व्यावसायिक वर्गीकरण ✔

(3) marital status and spoken dialects / वैवाहिक स्थिति और बोली जाने वाली बोलियाँ

(4) religious denomination and cultural identity / धार्मिक संप्रदाय और सांस्कृतिक पहचान

Q.133 Which of the following best describes the historical approach in geomorphology?
निम्नलिखित में से कौन-सा, भू-आकृति विज्ञान में ऐतिहासिक उपागम का सर्वोत्तम वर्णन करता है?

(1) Emphasises the sequence of processes independent of time / समय से स्वतंत्र प्रक्रियाओं के अनुक्रम पर बल देता है

(2) Analyses only human-induced changes in the landscape / भू-दृश्य में केवल मानव-जनित परिवर्तनों का विश्लेषण करता है

(3) Studies the historical evolution and development of landforms over time / समय के साथ भू-आकृतियों के ऐतिहासिक विकास और उद्भव का अध्ययन करता है ✔

(4) Focuses on the role of climate in shaping modern landforms / आधुनिक भू-आकृतियों को आकार देने में जलवायु की भूमिका पर केंद्रित होता है

Q.134 According to the critics of Malthus, which of the following is a major flaw in his assumptions?

माल्थस के आलोचकों के अनुसार, निम्नलिखित में से क्या उनकी मान्यताओं का एक प्रमुख दोष है?

(1) He failed to recognise technological changes in food production. / वह खाद्य उत्पादन में तकनीकी परिवर्तनों को पहचानने में विफल रहे। ✔

(2) He believed that resources are infinite. / उनका मानना था कि संसाधन अनंत हैं।

(3) He did not anticipate the impact of climate change. / उन्होंने जलवायु परिवर्तन के प्रभाव का अनुमान नहीं लगाया था।

(4) He underestimated urban growth. / उन्होंने शहरी विकास को कम करके आंका।

Q.135 When was the National Sample Survey (NSS) established by the Government of India?

भारत सरकार द्वारा राष्ट्रीय नमूना सर्वेक्षण (NSS) की स्थापना कब की गई थी?

(1) 1950 ✔

(2) 1956

(3) 1961

(4) 1948

Q.136 Kant's transcendental idealism was developed to reconcile which two contrasting views about the source of human knowledge?

कांट के अनुभवातीत आदर्शवाद (transcendental idealism) को मानव ज्ञान के स्रोत के बारे में किन दो विपरीत विचारों में सामंजस्य स्थापित करने के लिए विकसित किया गया था?

(1) Empiricism and Skepticism / अनुभववाद और संशयवाद

(2) Rationalism and Empiricism / तर्कवाद और अनुभववाद ✔

(3) Idealism and Sophism / आदर्शवाद और सोफिज़्म

(4) Scholasticism and Relativism / विद्वतावाद और सापेक्षवाद

Q.137 Which of the following surveys provide important population data that often cannot be obtained through the census or vital registration systems?

निम्नलिखित में से कौन-से सर्वेक्षण ऐसे महत्वपूर्ण जनसंख्या आंकड़े प्रदान करते हैं, जो प्रायः जनगणना या महत्वपूर्ण पंजीकरण प्रणालियों द्वारा प्राप्त नहीं किए जा सकते हैं?

(1) Environmental Impact Assessment, Forest Survey and Wildlife Census / पर्यावरणीय प्रभाव आकलन, वन सर्वेक्षण और वन्यजीव जनगणना

(2) National Sample Survey, National Family Health Survey and District Level Household Survey / राष्ट्रीय नमूना सर्वेक्षण, राष्ट्रीय परिवार स्वास्थ्य सर्वेक्षण और जिला स्तरीय घरेलू सर्वेक्षण ✔

(3) Geological Survey of India, Economic Survey and Remote Sensing Survey / भारतीय भूवैज्ञानिक सर्वेक्षण, आर्थिक सर्वेक्षण और सुदूर संवेदन सर्वेक्षण

(4) India Meteorological Survey, Agricultural Census and Soil Health Survey / भारतीय मौसम विज्ञान सर्वेक्षण, कृषि जनगणना और मृदा स्वास्थ्य सर्वेक्षण

Q.138 What is meant by Ravenstein's concept of counter-stream?

रेवेनस्टीन की प्रति-धारा (counter-stream) संकल्पना से क्या तात्पर्य है?

(1) Migration in only one direction / केवल एक ही दिशा में प्रवास

(2) Reverse migration to return to the place of origin / मूल स्थान पर वापस जाने के लिए प्रतिलोम प्रवास ✔

(3) Seasonal migration / ऋतु प्रवास

(4) Migration due to wars / युद्धों के कारण प्रवास

Q.139 Who is credited with preparing the first world map showing America as a separate continent?
अमेरिका को एक अलग महाद्वीप के रूप में दर्शाने वाले प्रथम विश्व मानचित्र को तैयार करने का श्रेय किसे दिया जाता है?

(1) Gerardus Mercator / जेरार्डस मर्केटर (Gerardus Mercator)
(2) Sebastian Munster / सेबस्टियन मुंस्टर (Sebastian Munster)
(3) Richard Hakluyt / रिचर्ड हाक्लुयट (Richard Hakluyt)
(4) **Martin Waldseemuller / मार्टिन वाल्डसीमुलर (Martin Waldseemuller) ✔**

Q.140 What does the radical approach in geography emphasise?
भूगोल में आमूल परिवर्तनवादी (रेडिकल) उपागम किस पर बल देता है?

(1) Environmental determinism / पर्यावरणीय नियतत्ववाद
(2) **Theory of labour value and social justice / श्रम मूल्य का सिद्धांत और सामाजिक न्याय ✔**
(3) Social determinism / सामाजिक नियतत्ववाद
(4) Neutral, value-free inquiry / तटस्थ, मूल्य-मुक्त अन्वेषण

Q.141 Select the option that is correct regarding the following two statements labelled Assertion (A) and Reason (R).
Assertion (A): Behavioural geography focuses on how people perceive and respond to their environment.
Reason (R): Behaviouralism in geography aims to explain spatial behaviour through psychological processes such as perception and cognition.
अभिकथन (A) और कारण (R) के रूप में क्रमांकित निम्नलिखित दोनों कथनों के संबंध में सही विकल्प का चयन कीजिए।
अभिकथन (A): व्यवहारवादी भूगोल इस पर केंद्रित होता है कि लोग अपने पर्यावरण को किस प्रकार देखते हैं और उसके प्रति किस प्रकार प्रतिक्रिया करते हैं।
कारण (R): भूगोल में व्यवहारवाद का उद्देश्य प्रत्यक्षण और संज्ञान जैसी मनोवैज्ञानिक प्रक्रियाओं के माध्यम से स्थानिक व्यवहार की व्याख्या करना है।

(1) A is true, but R is false. / A सत्य है, लेकिन R असत्य है।
(2) A is false, but R is true. / A असत्य है, लेकिन R सत्य है।
(3) **Both A and R are true, and R is the correct explanation of A. / A और R दोनों सत्य हैं, और R, A की सही व्याख्या है। ✔**
(4) Both A and R are true, but R is not the correct explanation of A. / A और R दोनों सत्य हैं, लेकिन R, A की सही व्याख्या नहीं है।

Q.142 What is a mudflow?
पंकप्रवाह (mudflow) क्या है?

(1) **A liquid mass of soil, rock debris, and water moving swiftly / मृदा, शैल मलबे और जल का तीव्रता से गतिमान तरल पिंड ✔**
(2) A slow movement of dry soil downslope / शुष्क मृदा का ढलान की ओर धीमा संचलन
(3) A mass of dry rocks rolling down a hill / पहाड़ी से नीचे लुढ़कती शुष्क शैलों का पिंड
(4) A flow of molten lava from a volcano / ज्वालामुखी से पिघले लावा का प्रवाह

Q.143 The journal 'Antipode' is associated with which geographical perspective?
जर्नल 'एंटीपोड (Antipode)' किस भौगोलिक परिप्रेक्ष्य से संबंधित है?

(1) **Radical geography / परिवर्तनवादी भूगोल ✔**
(2) Deterministic geography / निर्धारणात्मक भूगोल
(3) Quantitative geography / मात्रात्मक भूगोल
(4) Behavioural geography / व्यवहार भूगोल

Q.144 The Economic Deterministic Approach emphasises:

आर्थिक नियतत्ववादी उपागम किस पर बल देता है?

(1) human dependence on natural cycles and traditions / प्राकृतिक चक्रों और परंपराओं पर मानव की निर्भरता

(2) **economy as the primary driver of human-environment interaction / मानव-पर्यावरण अंतःक्रिया के प्राथमिक चालक के रूप में अर्थव्यवस्था ✔**

(3) cultural beliefs as central to geographical behaviour / भौगोलिक व्यवहार के केंद्र के रूप में सांस्कृतिक विश्वास

(4) climate as the only determining factor in development / विकास में एकमात्र निर्धारक कारक के रूप में जलवायु

Q.145 Who is the author of the book 'Description Regni Laponiae et Siam'?

'डिस्क्रिप्शन रेग्नी लैपोनिया एट सियाम (Description Regni Laponiae et Siam)' पुस्तक के लेखक/लेखिका कौन हैं?

(1) Cluverius / क्लुवेरियस (Cluverius)

(2) **Bernhardus Varenius / बर्नहार्डस वेरेनियस (Bernhardus Varenius) ✔**

(3) Ptolemy / टॉलेमी (Ptolemy)

(4) Alexander von Humboldt / अलेक्जेंडर वॉन हम्बोल्ट (Alexander von Humboldt)

Q.146 What are 'Chos' in the context of the Shiwalik Hills region?

शिवालिक पहाड़ियों के क्षेत्र के संदर्भ में 'चोस (Chos)' क्या हैं?

(1) Glacial landforms found in high Himalayas / उच्च हिमालय में पाई जाने वाली हिमनदीय भू-आकृतियाँ

(2) Man-made canals used for irrigation / सिंचाई के लिए उपयोग की जाने वाली मानव-निर्मित नहरें

(3) Sacred groves found in tribal areas / जनजातीय क्षेत्रों में पाए जाने वाले पवित्र उपवन

(4) **Seasonal streams that erode the southern slopes of the Shiwalik Hills / शिवालिक पहाड़ियों के दक्षिणी ढलानों का अपरदन करने वाली मौसमी धाराएँ ✔**

Q.147 Which mountain range of the Lesser Himalayas is located in Himachal Pradesh?

लघु हिमालय की कौन-सी पर्वत श्रृंखला हिमाचल प्रदेश में स्थित है?

(1) Mahabharat Lekh / महाभारत लेख

(2) **Dhauladhar Range / धौलाधार पर्वत श्रृंखला ✔**

(3) Nag Tibba Range / नाग टिब्बा पर्वत श्रृंखला

(4) Pir Panjal Range / पीर पंजाल पर्वत श्रृंखला

Q.148 Which of the following best illustrates the application of geomorphological understanding in the management of groundwater resources in limestone terrains?

निम्नलिखित में से कौन-सा, चूना पत्थर भू-भागों में भूजल संसाधनों के प्रबंधन में भूआकृतिकीय समझ के अनुप्रयोग को सर्वोत्तम रूप से दर्शाता है?

(1) Identification of surface water bodies for irrigation / सिंचाई के लिए सतही जल निकायों की पहचान

(2) Design of dams in basaltic regions / बेसाल्टी क्षेत्रों में बाँधों का डिज़ाइन

(3) Estimating rainfall using satellite data / उपग्रह डेटा का उपयोग करके वर्षा का अनुमान लगाना

(4) **Assessment of permeability of rocks based on tectonic and sedimentary features / विवर्तनिक और अवसादी विशेषताओं के आधार पर चट्टानों की पारगम्यता का आकलन ✔**

Q.149 Select the option that is correct regarding the following two statements labelled Assertion (A) and Reason (R).
Assertion (A): Systematic geography developed from the idea of spatial synthesis and organisation.
Reason (R): Systematic geography relies exclusively on physical geographic elements.
अभिकथन (A) और कारण (R) के रूप में क्रमांकित निम्नलिखित दोनों कथनों के संबंध में सही विकल्प का चयन कीजिए।
अभिकथन (A): क्रमबद्ध भूगोल का विकास स्थानिक संश्लेषण और संगठन के विचार से हुआ।
कारण (R): क्रमबद्ध भूगोल पूर्णतः भौतिक भौगोलिक तत्वों पर निर्भर करता है।

(1) Both A and R are true, and R is the correct explanation of A. / A और R दोनों सत्य हैं, और R, A की सही व्याख्या है।
(2) Both A and R are true, but R is not the correct explanation of A. / A और R दोनों सत्य हैं, लेकिन R, A की सही व्याख्या नहीं है।
(3) A is false, but R is true. / A असत्य है, लेकिन R सत्य है। ✔
(4) A is true, but R is false. / A सत्य है, लेकिन R असत्य है।

Q.150 According to Charles Darwin, how does evolution occur?
चार्ल्स डार्विन के अनुसार, विकास किस प्रकार होता है?

(1) Slowly and gradually over a very long period of time / अत्यंत लंबी अवधि में धीरे-धीरे और क्रमिक रूप से ✔
(2) By external intervention and artificial selection / बाहरी हस्तक्षेप और कृत्रिम वरण द्वारा
(3) Rapidly and in short time spans / तीव्रता से और कम समयावधि में
(4) Through sudden appearance of new species / नई प्रजातियों के अचानक प्रकट होने के माध्यम से

Q.151 Who is considered the 'father of exceptionalism' in geography?
भूगोल में 'अपवादवाद का जनक (father of exceptionalism)' किसे माना जाता है?

(1) Richard Hartshorne / रिचर्ड हार्टशॉर्न (Richard Hartshorne)
(2) Immanuel Kant / इम्मैनुएल कांट (Immanuel Kant) ✔
(3) Vidal de la Blache / विडाल डे ला ब्लाचे (Vidal de la Blache)
(4) Carl Ritter / कार्ल रिटर (Carl Ritter)

Q.152 Which of the following best describes the focus of Spatial Epidemiology within Medical Geography?
निम्नलिखित में से कौन-सा, चिकित्सा भूगोल के अंतर्गत स्थानिक महामारी विज्ञान के फोकस का सर्वोत्तम वर्णन करता है?

(1) Mapping disease patterns to understand their spatial distribution / रोग प्रतिरूपों के स्थानिक वितरण को समझने के लिए उनका मानचित्रण ✔
(2) Investigation of medical history and its geographic context / चिकित्सा इतिहास और उसके भौगोलिक संदर्भ की जाँच
(3) Study of healthcare systems and their accessibility / स्वास्थ्य सेवा प्रणालियों और उनकी सुलभता का अध्ययन
(4) Analysis of climatic influences on disease / रोग पर जलवायवी प्रभावों का विश्लेषण

Q.153 Auguste Comte's book 'The Course of Positive Philosophy' primarily emphasised:
ऑगस्ट कॉम्टे की पुस्तक 'द कोर्स ऑफ पॉजिटिव फिलॉसफी' मुख्य रूप से किस पर बल देती है?

(1) Marxist historical materialism / मार्क्सवादी ऐतिहासिक भौतिकवाद
(2) humanistic approach / मानवतावादी उपागम
(3) positivist philosophy based on scientific principles / वैज्ञानिक सिद्धांतों पर आधारित प्रत्यक्षवादी दर्शन ✔
(4) existentialism / अस्तित्ववाद

Q.154 In the behavioural approach, what is meant by 'cognitive environment'?

व्यवहारवादी उपागम में, 'संज्ञानात्मक पर्यावरण' से क्या तात्पर्य है?

(1) The environmental factors affecting climate / जलवायु को प्रभावित करने वाले पर्यावरणीय कारक

(2) The geographical terrain influencing human settlement / मानव बस्ती को प्रभावित करने वाला भौगोलिक भू-भाग

(3) The economic forces behind population growth / जनसंख्या वृद्धि के पीछे के आर्थिक बल

(4) **The mental map or perception influencing decisions / निर्णयों को प्रभावित करने वाला मानसिक मानचित्र या प्रत्यक्षण ✔**

Q.155 Which of the following statements best describes a caldera?

निम्नलिखित में से कौन-सा कथन, काल्डेरा का सर्वोत्तम वर्णन करता है?

(1) A fault line formed by subduction of oceanic plates / महासागरीय प्लेटों के क्षेपण से निर्मित एक भ्रंश रेखा

(2) A lake formed in a glacial trough due to melting ice / बर्फ पिघलने के कारण हिमनदीय द्रोणी में निर्मित एक झील

(3) A cone-shaped volcanic hill formed by lava flow / लावा प्रवाह से निर्मित एक शंकु आकार की ज्वालामुखीय पहाड़ी

(4) **A large volcanic depression formed by a collapse after a massive eruption / एक विशाल उद्गार के बाद धँसाव से निर्मित एक विशाल ज्वालामुखीय गर्त ✔**

Q.156 Behaviouralism in human geography emerged as a reaction to which of the following approaches?

मानव भूगोल में व्यवहारवाद, निम्नलिखित में से किस उपागम की प्रतिक्रिया के रूप में उभरा?

(1) **Positivism / प्रत्यक्षवाद ✔**

(2) Regional geography / प्रादेशिक भूगोल

(3) Cultural ecology / सांस्कृतिक पारिस्थितिकी

(4) Environmental determinism / पर्यावरणीय नियतत्ववाद

Q.157 What does the existentialist notion of 'existence before essence' imply?

अस्तित्ववादी धारणा 'सार से पहले अस्तित्व (existence before essence)' का तात्पर्य निम्नलिखित में से क्या है?

(1) The universe has a definite purpose which humans must follow. / ब्रह्माण्ड का एक निश्चित उद्देश्य है जिसका अनुसरण मनुष्य को करना चाहिए।

(2) Humans are born with predetermined roles in society. / मनुष्य समाज में पूर्वनिर्धारित भूमिकाओं के साथ जन्म लेता है।

(3) **People define themselves through their choices and actions after coming into existence. / लोग अस्तित्व में आने के बाद अपने विकल्पों और कार्यों के माध्यम से स्वयं को परिभाषित करते हैं। ✔**

(4) Human actions are determined by environmental factors. / मानवीय क्रियाएं पर्यावरणीय कारकों द्वारा निर्धारित होती हैं।

Q.158 The idea that regions are defined by the unique combination of interrelated phenomena is central to:

यह विचार कि प्रदेश अंतर्संबंधित परिघटनाओं के विशिष्ट संयोजन द्वारा परिभाषित होते हैं, किसका केंद्रीय विचार है?

(1) behavioural geography / व्यवहारवादी भूगोल

(2) environmental determinism / पर्यावरणीय नियतत्ववाद

(3) **areal differentiation / क्षेत्रीय विभेदन ✔**

(4) spatial analysis / स्थानिक विश्लेषण

Q.159 According to Kant, which of the following best describes the distinction between anthropology and physical geography?

कांट के अनुसार, निम्नलिखित में से कौन-सा, मानवशास्त्र और भौतिक भूगोल के बीच अंतर का सर्वोत्तम वर्णन करता है?

(1) Anthropology is concerned with economic systems, physical geography with political boundaries. / मानवशास्त्र का संबंध आर्थिक प्रणालियों से है, भौतिक भूगोल का राजनीतिक सीमाओं से।

(2) Both anthropology and physical geography study the same aspects of human life. / मानवशास्त्र और भौतिक भूगोल दोनों मानव जीवन के समान पहलुओं का अध्ययन करते हैं।

(3) Anthropology studies only human history, while physical geography studies climate. / मानवशास्त्र केवल मानव इतिहास का अध्ययन करता है, जबकि भौतिक भूगोल जलवायु का अध्ययन करता है।

(4) Anthropology deals with the inner senses, and physical geography deals with outer senses. / मानवशास्त्र आंतरिक इंद्रियों से संबंधित है, और भौतिक भूगोल बाह्य इंद्रियों से संबंधित है। ✔

Q.160 The process of abrasion caused by wind is also commonly referred to as:

पवन द्वारा होने वाली अपघर्षण की प्रक्रिया को सामान्यतः किस नाम से भी जाना जाता है?

(1) Sandblasting / बालू-घर्षण (सैंडब्लास्टिंग) ✔

(2) Plucking / उत्पाटन

(3) Sheet erosion / परत अपरदन

(4) Mass wasting / बृहत् क्षरण

Q.161 In what type of basin is the iso-hyetal method applied?

आइसो-हाइटल विधि (iso-hyetal method), किस प्रकार के बेसिन में अनुप्रयुक्त होती है?

(1) Basins larger than 5000 km^2 / 5000 km^2 से बड़े बेसिन ✔

(2) Areas without rainfall stations / बिना वर्षा केंद्रों वाले क्षेत्र

(3) Urban catchment areas / शहरी जलग्रहण क्षेत्र

(4) Small basins with an area of less than 500 km^2 / 500 km^2 से कम क्षेत्रफल वाले छोटे बेसिन

Q.162 Which of the following SDGs focuses on ending poverty in all its forms everywhere?

निम्नलिखित में से कौन-सा एसडीजी (SDG), सर्वत्र सभी रूपों में गरीबी उन्मूलन पर केंद्रित है?

(1) SDG 4

(2) SDG 3

(3) SDG 2

(4) SDG 1 ✔

Q.163 Which type of settlement is found in remote forested or hilly regions?

दूरस्थ वनाच्छादित या पहाड़ी क्षेत्रों में किस प्रकार की बस्ती पाई जाती है?

(1) Dispersed / प्रकीर्ण ✔

(2) Semi-clustered / अर्ध-गुच्छित

(3) Hamlet / पल्ली (हैमलेट)

(4) Compact / संहत

Q.164 Which of the following is NOT typically associated with household industries?

निम्नलिखित में से कौन-सा, सामान्यतः घरेलू उद्योगों से संबद्ध नहीं है?

(1) Pottery and bricks / मिट्टी के बर्तन और ईंटें

(2) Leather products / चमड़े के उत्पाद

(3) Bamboo crafts / बाँस के शिल्प

(4) Automobile / ऑटोमोबाइल ✔

Q.165 According to the collision and coalescence process, precipitation occurs when water droplets _____.

संघट्ट और संलयन प्रक्रिया के अनुसार, वर्षण तब होता है जब जल की बूँदें _____।

(1) freeze immediately after condensation / संघनन के तुरंत बाद जम जाती हैं

(2) evaporate to form ice crystals / वाष्पित होकर बर्फ के क्रिस्टल बनाती हैं

(3) collide and merge to form larger drops / टकराती हैं और मिलकर बड़ी बूँदें बनाती हैं ✔

(4) fall due to strong downdrafts / प्रबल अधोमुखी पवन धाराओं के कारण गिरती हैं

Q.166 Under which atmospheric condition does sleet typically occur?

सहिम वृष्टि (sleet) सामान्यतः किस वायुमंडलीय दशा में होती है?

(1) During a dry cold front passage / शुष्क शीत वाताग्र के गुजरने के दौरान

(2) When all air layers are below freezing / जब वायु की सभी परतें हिमांक से नीचे हों

(3) When a warm layer overlies a subfreezing layer near the surface / जब सतह के निकट हिमांक से नीचे की परत के ऊपर एक गर्म परत हो ✔

(4) In a completely warm air column / पूर्णतः गर्म वायु स्तंभ में

Q.167 Which of the following is NOT a stated objective of the National Food Security Mission (NFSM)?

निम्नलिखित में से कौन-सा, राष्ट्रीय खाद्य सुरक्षा मिशन (NFSM) का घोषित उद्देश्य नहीं है?

(1) Promoting exports of edible oils to boost farm income / कृषि आय बढ़ाने के लिए खाद्य तेलों के निर्यात को बढ़ावा देना ✔

(2) Enhancing productivity of rice, wheat, and pulses / चावल, गेहूँ और दालों की उत्पादकता बढ़ाना

(3) Reducing dependency on edible oil imports / खाद्य तेल के आयात पर निर्भरता कम करना

(4) Restoring soil fertility and improving farm-level economy / मृदा उर्वरता को बहाल करना और कृषि-स्तरीय अर्थव्यवस्था में सुधार करना

Q.168 What is an Urban Heat Island (UHI)?

नगरीय ऊष्मा द्वीप (UHI) क्या है?

(1) An urban area with high air pollution / उच्च वायु प्रदूषण वाला नगरीय क्षेत्र

(2) Desertification areas in cities / नगरों में मरूस्थलीयन क्षेत्र

(3) An urban area significantly warmer due to human activities / मानव गतिविधियों के कारण उल्लेखनीय रूप से गर्म नगरीय क्षेत्र ✔

(4) A densely populated urban part / घनी आबादी वाला नगरीय भाग

Q.169 In which year was the Micro, Small and Medium Enterprises Development (MSMED) Act enacted in India?

भारत में सूक्ष्म, लघु और मध्यम उद्यम विकास (MSMED) अधिनियम किस वर्ष लागू किया गया था?

(1) 2006 ✔

(2) 2013

(3) 2001

(4) 1999

Q.170 According to the 2011 Census, what percentage of India's urban population lives in slums?

2011 की जनगणना के अनुसार, भारत की शहरी आबादी का कितना प्रतिशत हिस्सा मलिन बस्तियों (slums) में रहता है?

(1) 25%

(2) 30%

(3) 17% ✔

(4) 10%

Q.171 In which range does a 'Good' AQI value usually lie?

'अच्छा (Good)' AQI मान, प्राय: किस रेंज में स्थित होता है?

(1) 201–300

(2) 0–50 ✔

(3) 51–100

(4) 101–200

Q.172 Which of the following pairs correctly represents the regional names of shifting cultivation and their corresponding locations?

निम्नलिखित में से कौन-सा युग्म स्थानांतरी कृषि के क्षेत्रीय नामों और उनके संगत स्थानों को सही रूप से निरूपित करता है?

(1) Jhum – Central America; Milpa – North-eastern India; Ladang – Africa / झूम – मध्य अमेरिका; मिल्पा – उत्तर-पूर्वी भारत; लदांग – अफ्रीका

(2) Jhum – North-eastern India; Milpa – Central America; Ladang – Indonesia and Malaysia / झूम – उत्तर-पूर्वी भारत; मिल्पा – मध्य अमेरिका; लदांग – इंडोनेशिया और मलेशिया ✔

(3) Jhum – Indonesia; Milpa – Africa; Ladang – South America / झूम – इंडोनेशिया; मिल्पा – अफ्रीका; लदांग – दक्षिण अमेरिका

(4) Jhum – South India; Milpa – South-East Asia; Ladang – Japan / झूम – दक्षिण भारत; मिल्पा – दक्षिण पूर्व एशिया; लदांग – जापान

Q.173 What does a high Biological Oxygen Demand (BOD) value indicate when assessing the quality of water in a water body?

किसी जल निकाय में जल की गुणवत्ता का आकलन करते समय उच्च जैविक ऑक्सीजन माँग (BOD) मान क्या इंगित करता है?

(1) The water is heavily polluted with organic waste. / जल कार्बनिक अपशिष्ट से अत्यधिक प्रदूषित है। ✔

(2) The water contains fewer dissolved nutrients. / जल में घुलित पोषक तत्व कम हैं।

(3) The water is safe for drinking purposes. / जल पीने के लिए सुरक्षित है।

(4) The water has high levels of chemical waste. / जल में रासायनिक अपशिष्ट का स्तर उच्च है।

Q.174 How many specific targets are included under the 17 Sustainable Development Goals?

17 सतत विकास लक्ष्यों के अंतर्गत कितने विशिष्ट लक्ष्य शामिल हैं?

(1) 102

(2) 169 ✔

(3) 178

(4) 149

Q.175 What is the drainage pattern called which developed on a now-eroded surface and is cut into underlying rocks of different structure?

उस अपवाह प्रतिरूप को क्या कहा जाता है जो वर्तमान में अपरदित पृष्ठ (now-eroded surface) पर विकसित हुआ तथा विभिन्न संरचना वाली अधःस्थ शैलों (underlying rocks) में कर्तित है?

(1) Dendritic drainage / द्रुमाकृतिक अपवाह (Dendritic drainage)

(2) Superimposed drainage / अध्यारोपित अपवाह (Superimposed drainage) ✔

(3) Multibasinal drainage / मल्टीबेसिनल अपवाह (Multibasinal drainage)

(4) Antecedent drainage / पूर्ववर्ती अपवाह (Antecedent drainage)

Q.176 Silicon Valley near San Francisco is an example of which of the following?

सैन फ्रांसिस्को के निकट सिलिकॉन वैली निम्नलिखित में से किसका एक उदाहरण है?

(1) Textile industry / वस्त्र उद्योग

(2) Agro-based industry / कृषि-आधारित उद्योग

(3) Technopole / प्रौद्योगिक ध्रुव ✔

(4) Traditional manufacturing hub / पारंपरिक विनिर्माण हब

Q.177 Which of the following is NOT one of the three main elements of food security?

निम्नलिखित में से कौन-सा, खाद्य सुरक्षा के तीन मुख्य तत्वों में से एक नहीं है?

(1) Food availability / खाद्य उपलब्धता

(2) Food marketing / खाद्य विपणन ✔

(3) Food utilisation / खाद्य उपयोग

(4) Access to food / खाद्य तक पहुंच

Q.178 Trellis drainage pattern is usually found in topographies where _____.

ट्रेलिस अपवाही पैटर्न प्रायः उन स्थलाकृतियों में पाया जाता है, जहाँ _____।

(1) only soft sedimentary rocks are present / केवल मृदु अवसादी शैलें मौजूद होती हैं

(2) the bedrock structure has alternating bands of hard and soft rocks / मूलाधार संरचना में दृढ़ और मृदु शैलों की एकांतर पट्टियां होती हैं ✔

(3) the topography is dominated by hard crystalline rocks / की स्थलाकृतियों में दृढ़ क्रिस्टलीय शैलों का प्रभुत्व होता है

(4) the area is flat without any structural control / का क्षेत्र बिना किसी संरचनात्मक नियंत्रण के सपाट होता है

Q.179 What does the term social capital primarily refer to in the context of social well-being?

सामाजिक कल्याण के संदर्भ में सामाजिक पूँजी पद का मुख्य रूप से क्या अर्थ है?

(1) Level of industrial development in a region / किसी क्षेत्र में औद्योगिक विकास का स्तर

(2) Value of natural resources in a society / किसी समाज में प्राकृतिक संसाधनों का मूल्य

(3) Economic investments made by the government / सरकार द्वारा किए गए आर्थिक निवेश

(4) Strength of social networks and relationships / सामाजिक नेटवर्क और संबंधों की सुदृढ़ता ✔

Q.180 What is meant by relative humidity?

सापेक्ष आर्द्रता (relative humidity) से क्या तात्पर्य है?

(1) The actual volume of water vapour in the atmosphere / वायुमंडल में जल वाष्प का वास्तविक आयतन

(2) The total amount of moisture present in the air at all times / पूरे समय वायु में मौजूद आर्द्रता की कुल मात्रा

(3) The percentage of moisture present in the air compared to its maximum capacity at a given temperature / दिए गए तापमान पर अपनी अधिकतम क्षमता की तुलना में वायु में मौजूद आर्द्रता का प्रतिशत ✔

(4) The difference between the dew point temperature and the actual temperature / ओसांक तापमान और वास्तविक तापमान का अंतर

Q.181 As per the Ancient Monuments and Archaeological Sites and Remains Act, which of the following are protected under the law?

प्राचीन संस्मारक तथा पुरातत्वीय स्थल और अवशेष अधिनियम के अनुसार, निम्नलिखित में से कौन-से कानून के अंतर्गत संरक्षित हैं?

(1) Heritage sites, monuments, archaeological sites, and sculptures / धरोहर स्थल, संस्मारक, पुरातात्विक स्थल और मूर्तियाँ ✔

(2) Only religious buildings / केवल धार्मिक भवन

(3) Only monuments and forts / केवल संस्मारक और किले

(4) Only archaeological sites and excavation reports / केवल पुरातात्विक स्थल और उत्खनन रिपोर्टें

Q.182 Which of the following first attempted the functional classification of Class I Indian cities using the Location Quotient method?

निम्नलिखित में से किसने अवस्थिति-खंड (Location Quotient) विधि का उपयोग करके श्रेणी I भारतीय शहरों के कार्यात्मक वर्गीकरण का सर्वप्रथम प्रयास किया?

(1) Amrit Lal / अमृत लाल ✔

(2) G. S. Ghurye / जी. एस. घुर्ये

(3) Qazi Ahmad / क़ाज़ी अहमद

(4) R. L. Singh / आर. एल. सिंह

Q.183 Jean Brunhes is associated with which geographical philosophy?

जीन ब्रून्स किस भौगोलिक दर्शन से संबद्ध हैं?

(1) Neo-determinism / नव-नियतत्ववाद

(2) Possibilism / संभववाद ✔

(3) Regionalism / प्रादेशिकतावाद

(4) Environmental determinism / पर्यावरणीय नियतत्ववाद

Q.184 In which Indian state is the Harappan city 'Dholavira', recognised as a UNESCO World Heritage Site in 2021, located?

वर्ष 2021 में यूनेस्को विश्व धरोहर स्थल के रूप में मान्यता प्राप्त हड़प्पा नगर 'धोलावीरा' किस भारतीय राज्य में स्थित है?

(1) Haryana / हरियाणा

(2) Gujarat / गुजरात ✔

(3) Punjab / पंजाब

(4) Rajasthan / राजस्थान

Q.185 In human geography, what was the main focus of the areal differentiation approach?

मानव भूगोल में, क्षेत्रीय विभेदन उपागम का मुख्य फोकस क्या होता था?

(1) Using laws of physics and statistical techniques / भौतिकी के नियमों और सांख्यिकीय तकनीकों का उपयोग करना

(2) Classifying the earth's surface based on climate types / जलवायु प्रकारों के आधार पर भू-पृष्ठ का वर्गीकरण करना

(3) Identifying the uniqueness of regions and understanding the differences between them / क्षेत्रों की विशिष्टता की पहचान करना और उनके बीच अंतर को समझना ✔

(4) Studying only economic patterns in space / अंतरिक्ष में केवल आर्थिक पैटर्न का अध्ययन करना

Q.186 The rectangular pattern of rural settlements is usually found in _____.

ग्रामीण बस्तियों का आयताकार स्वरूप प्रायः _____ में पाया जाता है।

(1) plain areas / मैदानी क्षेत्रों ✔

(2) desert areas / मरुस्थलीय क्षेत्रों

(3) coastal areas / तटीय क्षेत्रों

(4) hilly areas / पहाड़ी क्षेत्रों

Q.187 Which city in the world was first classified as a megacity in the year 1950?

वर्ष 1950 में विश्व में सबसे पहले किस शहर को मेगासिटी (megacity) के रूप में वर्गीकृत किया गया था?

(1) Shanghai / शंघाई

(2) New York / न्यूयॉर्क ✔

(3) Tokyo / टोक्यो

(4) London / लंदन

Q.188 What is the primary reason for the formation of the 'Ring of Fire' around the Pacific Ocean?

प्रशांत महासागर के चारों ओर 'अग्नि वलय (Ring of Fire)' के निर्माण का प्राथमिक कारण क्या है?

(1) Continuous deposition of sediments / अवसादों का सतत निक्षेपण

(2) Continent-continent plate convergence / महाद्वीप-महाद्वीप प्लेट अभिसरण

(3) Presence of large coral reefs / बड़ी प्रवाल भित्तियों की उपस्थिति

(4) Subduction of oceanic plates beneath continental and oceanic plates / महाद्वीपीय और महासागरीय प्लेटों के नीचे महासागरीय प्लेटों का क्षेपण ✔

Q.189 Who advocated the Idealist Approach in geography as a critique of positivism?

प्रत्यक्षवाद की आलोचना के रूप में भूगोल में आदर्शवादी उपागम का समर्थन किसने किया?

(1) Leonard Guelke / लियोनार्ड गुएल्के ✔

(2) Richard Hartshorne / रिचर्ड हार्टशॉर्न

(3) Carl Ritter / कार्ल रिटर

(4) David Harvey / डेविड हार्वे

Q.190 According to Wegener, how were the Rocky and Andes Mountains formed?

वेगनर के अनुसार, रॉकी और एंडीज़ पर्वतों का निर्माण किस प्रकार हुआ?

(1) Due to volcanic eruptions at plate boundaries / प्लेट सीमाओं पर ज्वालामुखी उद्गारों के कारण

(2) Due to collision of oceanic plates with Eurasia / यूरेशिया के साथ महासागरीय प्लेटों के टकराव के कारण

(3) Due to crumpling of continental edges during westward drift of Americas / अमेरिका के पश्चिम की ओर प्रवाह के दौरान महाद्वीपीय किनारों के वलित होने के कारण ✔

(4) Due to upwelling of magma from the mantle / मेंटल से मैग्मा के ऊपर उठने के कारण

Q.191 What is the reason for selecting the Standard Meridian of India (82°30'E) for the time of the entire country?

पूरे देश के समय के लिए भारत के मानक याम्योत्तर (82°30'E) का चयन करने का कारण क्या है?

(1) It is located exactly in the middle of India. / यह भारत के ठीक मध्य में स्थित है।

(2) It helps in maintaining a uniform time across the entire country. / इससे पूरे देश में एक समान समय बनाए रखने में मदद मिलती है। ✔

(3) It reduces the effect of latitudinal difference. / यह अक्षांशीय अंतर के प्रभाव को कम करता है।

(4) The sun rises here first in the country. / यहां देश में सबसे पहले सूर्योदय होता है।

Q.192 Which mountain's summit is the farthest point from the Earth's centre?

किस पर्वत का शिखर पृथ्वी के केंद्र से सबसे दूर स्थित बिंदु है?

(1) K2

(2) **Chimborazo / चिम्बोराजो ✔**

(3) Mauna Kea / मौना की

(4) Mount Everest / माउंट एवरेस्ट

Q.193 Which of the following statements aligns with post-modernism in geography?

निम्नलिखित में से कौन-सा कथन, भूगोल में उत्तर-आधुनिकतावाद के अनुरूप है?

(1) Theories should apply uniformly to all cultures. / सिद्धांत सभी संस्कृतियों पर समान रूप से लागू होने चाहिए।

(2) **Each local context must be understood on its own terms. / प्रत्येक स्थानीय संदर्भ को उसकी अपनी शर्तों पर समझा जाना चाहिए। ✔**

(3) The same economic model can explain development in all regions. / एक ही आर्थिक मॉडल सभी क्षेत्रों में विकास की व्याख्या कर सकता है।

(4) Universal laws of spatial behaviour are always valid. / स्थानिक व्यवहार के सार्वभौमिक नियम सदैव मान्य होते हैं।

Q.194 According to which of the following environmental determinists was climate change the main reason for the end of civilisations like the Indus Valley and Mesopotamia?

निम्नलिखित में से किस पर्यावरणीय नियतत्ववादी के अनुसार, सिंधु घाटी और मेसोपोटामिया जैसी सभ्यताओं के अंत का मुख्य कारण जलवायु परिवर्तन था?

(1) **Huntington / हंटिंगटन (Huntington) ✔**

(2) Mackinder / मैकिंडर (Mackinder)

(3) Bowman / बोमन (Bowman)

(4) Chisholm / चिशोल्म (Chisholm)

Q.195 By how many hours is Indian Standard Time (IST) ahead of Greenwich Mean Time (GMT)?

ग्रिनिच माध्य समय (GMT) से भारतीय मानक समय (IST) कितने घंटे आगे है?

(1) 6 hours 30 minutes / 6 घंटे 30 मिनट

(2) 4 hours / 4 घंटे

(3) 5 hours / 5 घंटे

(4) **5 hours 30 minutes / 5 घंटे 30 मिनट ✔**

Q.196 The behavioural approach encourages the use of which of the following in research?

व्यवहारवादी उपागम, शोध में निम्नलिखित में से किसके उपयोग को प्रोत्साहित करता है?

(1) **Individual-level primary data / व्यक्तिगत स्तरीय प्राथमिक आंकड़े ✔**

(2) Only mathematical modelling / केवल गणितीय प्रतिरूपण

(3) Historical data / ऐतिहासिक आंकड़े

(4) Aggregated demographic data / समेकित जनसांख्यिकीय आंकड़े

Q.197 What geological feature is commonly formed when an oceanic plate subducts beneath a continental plate?

जब कोई महासागरीय प्लेट किसी महाद्वीपीय प्लेट के नीचे क्षेपित होती है, तब सामान्यतः कौन-सी भूवैज्ञानिक आकृति निर्मित होती है?

(1) **Deep-sea trench / गहन सागरीय खाई ✔**

(2) Fold mountains / वलित पर्वत

(3) Mid-ocean ridge / मध्य-महासागरीय कटक

(4) Rift valley / भ्रंश घाटी

Q.198 What is the southernmost point of the Indian mainland called?

भारतीय मुख्य भूमि के दक्षिणतम बिंदु को क्या कहा जाता है?

(1) Indira Point / इंदिरा पॉइंट (Indira Point)

(2) **Cape Comorin / केप कोमोरिन (Cape Comorin) ✔**

(3) Indira Col / इंदिरा कॉल (Indira Col)

(4) Minicoy / मिनिकॉय (Minicoy)

Q.199 The integration of sociology and demography to analyse spatial variations in population structures is studied under which of the following?

जनसंख्या संरचनाओं में स्थानिक विविधताओं का विश्लेषण करने के लिए समाजशास्त्र और जनसांख्यिकी के एकीकरण का अध्ययन निम्नलिखित में से किसके अंतर्गत किया जाता है?

(1) **Population geography / जनसंख्या भूगोल ✔**

(2) Cultural geography / सांस्कृतिक भूगोल

(3) Political geography / राजनीतिक भूगोल

(4) Economic geography / आर्थिक भूगोल

Q.200 What is the approximate east-west extent of India?

भारत का पूर्व-पश्चिम विस्तार लगभग कितना है?

(1) 2,000 km

(2) **2,933 km ✔**

(3) 3,450 km

(4) 2,255 km

Q.201 What kind of map is especially useful during wartime strategy?

युद्धकालीन रणनीति के दौरान किस प्रकार का मानचित्र विशेष रूप से उपयोगी होता है?

(1) Population map / जनसंख्या मानचित्र

(2) **Relief map / उच्चावच मानचित्र ✔**

(3) Climate map / जलवायु मानचित्र

(4) Trade map / व्यापार मानचित्र

Q.202 What is the basic idea of environmental determinism?

पर्यावरण नियतत्ववाद (environmental determinism) का मूल विचार क्या है?

(1) Humans can completely control their environment. / मनुष्य अपने पर्यावरण को पूरी तरह से नियंत्रित कर सकता है।

(2) Technology alone defines human development. / प्रौद्योगिकी अकेले मानव विकास को परिभाषित करती है।

(3) Human actions are determined entirely by culture and tradition. / मानवीय क्रियाएँ पूर्णतः संस्कृति और परंपरा द्वारा निर्धारित होती हैं।

(4) **The natural environment determines human behaviour and development. / प्राकृतिक पर्यावरण, मानव व्यवहार और विकास को निर्धारित करता है। ✔**

QuickSarkari.com | WhatsApp Channel | Telegram: t.me/quick_sarkari

Q.203 Select the option that is true regarding the following two statements labelled Assertion (A) and Reason (R).
Assertion (A): The Tethys Sea was formed as a narrow, shallow sea between two drifting landmasses.
Reason (R): The seafloor of the Tethys was a region of intense volcanic activity.
उस विकल्प का चयन कीजिए, जो अभिकथन (A) और कारण (R) के रूप में उल्लिखित निम्नलिखित दोनों कथनों के संबंध में सत्य है।
अभिकथन (A): टेथिस समुद्र का निर्माण दो अपवाही भू-भागों के मध्य एक संकीर्ण, उथले समुद्र के रूप में हुआ था।
कारण (R): टेथिस का समुद्र अधस्तल, तीव्र ज्वालामुखीय सक्रियता का क्षेत्र था।

(1) A is false, but R is true. / A असत्य है, लेकिन R सत्य है।
(2) Both A and R are true, and R is the correct explanation of A. / A और R दोनों सत्य हैं, और R, A की सही व्याख्या है।
(3) Both A and R are true, but R is not the correct explanation of A. / A और R दोनों सत्य हैं, लेकिन R, A की सही व्याख्या नहीं है।
(4) A is true, but R is false. / A सत्य है, लेकिन R असत्य है। ✔

Q.204 Which of the following is an example of a transform fault?
निम्नलिखित में से कौन-सा, रूपांतर भ्रंश का एक उदाहरण है?

(1) East African Rift / पूर्वी अफ्रीकी रिफ्ट
(2) San Andreas Fault / सैन एंड्रियास भ्रंश ✔
(3) Andes Mountains / एंडीज़ पर्वत
(4) Mariana Trench / मारियाना गर्त

Q.205 Epeirogenic movements are associated with:
महादेशजनक (epeirogenic) संचलन किससे संबंधित हैं?

(1) Vertical upliftment and subsidence of continental masses / महाद्वीपीय भूखंडों का ऊर्ध्वाधर उत्थान और अवतलन ✔
(2) Folding and faulting / वलन और भ्रंशन
(3) Volcanic eruptions / ज्वालामुखी उद्गार
(4) Horizontal compressional forces / क्षैतिज संपीडन बल

Q.206 Who is considered a key advocate of the ecological approach in geography?
भूगोल में पारिस्थितिक उपागम का प्रमुख समर्थक किसे माना जाता है?

(1) Alexander von Humboldt / अलेक्जेंडर वॉन हम्बोल्ट
(2) CC Park / सी.सी. पार्क ✔
(3) Vidal de la Blache / विडाल डी ला ब्लाश
(4) Carl Sauer / कार्ल सॉर

Q.207 Which human activity has significantly disrupted the natural nitrogen cycle?
किस मानवीय गतिविधि ने प्राकृतिक नाइट्रोजन चक्र को महत्वपूर्ण रूप से बाधित किया है?

(1) Use of nitrogen-based fertilisers in agriculture / कृषि में नाइट्रोजन-आधारित उर्वरकों का उपयोग ✔
(2) Mining of phosphate rocks / फॉस्फेट शैलों का खनन
(3) Conservation of wetland areas / आर्द्रभूमि क्षेत्रों का संरक्षण
(4) Construction of dams / बांधों का निर्माण

QuickSarkari.com | WhatsApp Channel | Telegram: t.me/quick_sarkari

Q.208 Which of the following rock types can turn into metamorphic rocks?
निम्नलिखित में से कौन-से शैल प्रकार कायांतरित शैलों में परिवर्तित हो सकते हैं?

(1) Only intrusive rocks / केवल अंतर्वेधी शैलें
(2) Only igneous rocks / केवल आग्नेय शैलें
(3) Only sedimentary rocks / केवल अवसादी शैलें
(4) Both sedimentary and igneous rocks / अवसादी और आग्नेय दोनों शैलें ✔

Q.209 What happens when two continental plates collide at a convergent boundary?
क्या होता है जब दो महाद्वीपीय प्लेटें, अभिसरण सीमा (convergent boundary) पर टकराती हैं?

(1) One plate is destroyed in the mantle. / मैंटल (mantle) में एक प्लेट नष्ट हो जाती है।
(2) A rift valley is formed. / एक रिफ्ट घाटी का निर्माण होता है।
(3) New oceanic crust is formed. / नई महासागरीय पटल का निर्माण होता है।
(4) Large mountain ranges are formed. / बड़ी पर्वत श्रेणियां निर्मित होती हैं। ✔

Q.210 Which mineral is found in abundance in acidic igneous rocks?
अम्लीय आग्नेय शैल में कौन-सा खनिज प्रचुर मात्रा में पाया जाता है?

(1) Silica / सिलिका ✔
(2) Potassium / पोटैशियम
(3) Magnesia / मैग्नीशिया
(4) Iron / लोहा

Q.211 Sedimentary rocks are primarily formed through which process?
अवसादी शैलें मुख्य रूप से किस प्रक्रिया के माध्यम से निर्मित होती हैं?

(1) Metamorphism / कायांतरण
(2) Crystallisation / क्रिस्टलीकरण
(3) Lithification / शिलीभवन ✔
(4) Sublimation / ऊर्ध्वपातन

Q.212 In eluviation, how does the transport of material take place?
अवक्षालन (eluviation) में, पदार्थ का परिवहन किस प्रकार होता है?

(1) Downward from the upper to the lower soil horizon / ऊपरी से निचले मृदा संस्तर की ओर अधोमुखी ✔
(2) Horizontally within the same soil layer / एक ही मृदा स्तर के भीतर क्षैतिज रूप से
(3) From one soil layer to another by wind / पवन द्वारा एक मृदा स्तर से दूसरे मृदा स्तर तक
(4) Upward towards the surface / सतह की ओर उपरिमुखी

Q.213 According to neo-determinism, when should human activities be stopped?
नव-नियतत्ववाद के अनुसार, मानवीय गतिविधियाँ कब रोक दी जानी चाहिए?

(1) When they are too expensive / जब वे बहुत महँगी हों
(2) When they are against political will / जब वे राजनीतिक इच्छाशक्ति के विपरीत हों
(3) When they cause long-term environmental damage / जब वे दीर्घकालिक पर्यावरणीय क्षति पहुँचाएँ ✔
(4) When they are not profitable for the economy / जब वे अर्थव्यवस्था के लिए लाभदायक न हों

Q.214 The scale of a map is 1:50,000. What does 2 cm on the map represent on the ground?

एक मानचित्र का पैमाना 1:50,000 है। मानचित्र पर 2 cm, भूमि पर कितना निरूपित करता है?

(1) 10 km

(2) 100 km

(3) **2 km ✔**

(4) 1 km

Q.215 According to evidence of the theory of continental drift, the source rock for the gold deposits found on the Ghanaian coast is located on the:

महाद्वीपीय विस्थापन सिद्धांत के साक्ष्य के अनुसार, घाना के तट पर पाए जाने वाले सोने के निक्षेपों की स्रोत शैल कहाँ स्थित है?

(1) Congo Basin / कांगो बेसिन

(2) **Brazilian coast / ब्राज़ील का तट ✔**

(3) Indian Peninsula / भारतीय प्रायद्वीप

(4) Canadian Shield / कनाडियन शील्ड

Q.216 How do maps help international tourists who don't speak the local language?

मानचित्र उन अंतर्राष्ट्रीय पर्यटकों की किस प्रकार सहायता करते हैं जो स्थानीय भाषा नहीं बोलते हैं?

(1) By displaying real-time traffic updates / वास्तविक समय की यातायात जानकारी प्रदर्शित करके

(2) **By showing visual directions to destinations / गंतव्यों तक दृश्य दिशा-निर्देश दिखाकर ✔**

(3) By converting currency / मुद्रा परिवर्तित करके

(4) By offering free translation services / निःशुल्क अनुवाद सेवाएँ प्रदान करके

Q.217 What is soil creep?

मृदा सर्पण (soil creep) क्या है?

(1) Slow downslope movement of water-saturated soil / जल-संतृप्त मृदा का धीरे-धीरे ढलान की ओर संचलन

(2) **Extremely slow movement of soil on slopes / ढलानों पर मृदा का अत्यंत धीमा संचलन ✔**

(3) Rapid movement of soil on slopes / ढलानों पर मृदा का तीव्र संचलन

(4) Rapid downslope movement of water-saturated soil / जल-संतृप्त मृदा का तीव्रता से ढलान की ओर संचलन

Q.218 Which of the following is an example of a large flood basalt province?

निम्नलिखित में से कौन-सा, एक विशाल बाढ़ बेसाल्ट प्रांत का उदाहरण है?

(1) Aravalli Range / अरावली पर्वतमाला

(2) Western Ghats / पश्चिमी घाट

(3) Chotanagpur plateau / छोटानागपुर पठार

(4) **Deccan Traps / दक्कन ट्रैप ✔**

Q.219 Which of the following is a strategy to enhance carbon sequestration and stabilise the climate?

निम्नलिखित में से कौन-सी, कार्बन प्रच्छादन को बढ़ाने और जलवायु को स्थिर करने की एक रणनीति है?

(1) Increasing plastic production / प्लास्टिक उत्पादन में वृद्धि

(2) Expanding fossil fuel subsidies / जीवाश्म ईंधन सब्सिडी का विस्तार

(3) Promoting monoculture farming / एकल फसली कृषि को बढ़ावा देना

(4) **Reforestation and sustainable land use / पुनर्वनीकरण और संधारणीय भूमि उपयोग ✔**

Q.220 Which direction is considered the reference direction in mapping?

मानचित्रण में किस दिशा को आधार दिशा माना जाता है?

(1) South / दक्षिण

(2) East / पूर्व

(3) **North / उत्तर ✔**

(4) West / पश्चिम

Q.221 Which seismic hazard is most commonly associated with transform faults?

रूपांतर भ्रंशों से सबसे अधिक सामान्यतः कौन-सा भूकंपीय संकट संबद्ध है?

(1) Tsunamis from oceanic trench formation / महासागरीय गर्त निर्माण से सुनामी

(2) **Earthquakes due to sudden horizontal displacement / अचानक क्षैतिज विस्थापन के कारण भूकंप ✔**

(3) Volcanic eruptions / ज्वालामुखी उद्गार

(4) Landslides due to uplift / उत्थान के कारण भूस्खलन

Q.222 Due to which of the following reasons are the Andaman and Nicobar Islands seismically active?

निम्नलिखित में से किन कारणों से अंडमान और निकोबार द्वीप समूह भूकंपीय दृष्टि से सक्रिय हैं?

(1) Excessive deforestation and soil erosion / वनों की अधिक कटाई और मृदा अपरदन

(2) Collision of the Indian plate with the Philippine Sea plate / भारतीय प्लेट का फिलीपीन समुद्री प्लेट से टकराव

(3) **Seabed displacement and submarine volcanoes / समुद्र तल विस्थापन और अंतर्जलीय ज्वालामुखी ✔**

(4) Collision of the Indian plate with the Arabian plate / भारतीय प्लेट का अरब प्लेट से टकराव

Q.223 By what name is the region between the Tropic of Cancer and the Tropic of Capricorn known?

कर्क रेखा और मकर रेखा के बीच के क्षेत्र को किस नाम से जाना जाता है?

(1) **Torrid Zone / उष्ण कटिबंध ✔**

(2) Tropical region / उष्णकटिबंधीय क्षेत्र

(3) Temperate Zone / शीतोष्ण कटिबंध

(4) Frigid Zone / शीत कटिबंध

Q.224 When was the Disaster Management Act passed by the Indian Parliament to establish a legal framework for disaster management in the country?

देश में आपदा प्रबंधन हेतु कानूनी ढांचा स्थापित करने के लिए भारतीय संसद द्वारा आपदा प्रबंधन अधिनियम कब पारित किया गया था?

(1) 2015

(2) **2005 ✔**

(3) 2002

(4) 2012

Q.225 In which year did the devastating Bhuj earthquake occur?

विध्वंसकारी भुज भूकंप किस वर्ष आया था?

(1) 1985

(2) 2003

(3) 2005

(4) **2001 ✔**

Q.226 How many time zones are there in Canada and the United States of America (USA)?
कनाडा और संयुक्त राज्य अमेरिका (USA) में कितने टाइम जोन हैं?

(1) Four / चार
(2) Six / छह
(3) Three / तीन
(4) Five / पाँच ✔

Q.227 In a topographic map, which features are generally represented by the green symbol?
स्थालाकृतिक मानचित्र में किन आकृतियों को निरूपित करने के लिए सामान्यतः हरे प्रतीक का उपयोग किया जाता है?

(1) Roads and transport networks / सड़कें और परिवहन नेटवर्क
(2) Water bodies and marshland / जल निकाय और कच्छभूमि
(3) Agricultural areas and settlements / कृषि क्षेत्र और बस्तियां
(4) Wooded and forest areas, orchards and scrub / जंगली और वन्य क्षेत्र, फलोद्यान और झाड़ियां ✔

Q.228 Which of the following discontinuities separates the upper mantle from the lower mantle?
निम्नलिखित में से कौन-सी असांतत्य, ऊपरी मेंटल को निचले मेंटल से पृथक करती है?

(1) Conrad Discontinuity / कानराड असांतत्य (Conrad Discontinuity)
(2) Repetti Discontinuity / रेपेटी असांतत्य (Repetti Discontinuity) ✔
(3) Mohorovicic Discontinuity / मोहरोविसिक असांतत्य (Mohorovicic Discontinuity)
(4) Gutenberg Discontinuity / गुटेनबर्ग असांतत्य (Gutenberg Discontinuity)

Q.229 Which of the following options accurately explains why there is summer in the northern hemisphere during the summer solstice?
निम्नलिखित में से कौन-सा विकल्प इस तथ्य की सटीक व्याख्या करता है, कि उत्तर अयनांत (summer solstice) के दौरान उत्तरी गोलार्ध में ग्रीष्म क्यों होती है?

(1) The equator is directly facing the sun / विषुवत् रेखा सूर्य के ठीक सामने होती है
(2) The northern hemisphere is tilted towards the sun / उत्तरी गोलार्ध सूर्य की ओर झुका होता है ✔
(3) Vertical rays fall on the Tropic of Capricorn / मकर-रेखा पर ऊर्ध्वाधर किरणें पड़ती हैं
(4) The Earth is closer to the sun during this period / इस अवधि के दौरान पृथ्वी सूर्य के अधिक निकट होती है

Q.230 When does the winter solstice occur in the southern hemisphere?
दक्षिणी गोलार्ध में, शीत अयनांत (winter solstice) कब होता है?

(1) 20 March / 20 मार्च
(2) 1 June / 1 जून ✔
(3) 22 September / 22 सितंबर
(4) 21 December / 21 दिसंबर

Q.231 Which states of western India frequently face droughts, leading to water scarcity and agricultural distress?
पश्चिमी भारत के कौन-से राज्य बार-बार सूखे का सामना करते हैं, जिससे जल न्यूनता और कृषि संकट पैदा होता है?

(1) Punjab and Haryana / पंजाब और हरियाणा
(2) Kerala and Karnataka / केरल और कर्नाटक
(3) Gujarat and Rajasthan / गुजरात और राजस्थान ✔
(4) Goa and Maharashtra / गोवा और महाराष्ट्र

Q.232 According to Wegener's theory, what was primarily responsible for the westward movement of the continents?

वेगनर के सिद्धांत के अनुसार, महाद्वीपों के पश्चिम की ओर संचलन के लिए मुख्य रूप से क्या उत्तरदायी था?

(1) Heat flow from mid-oceanic ridges / मध्य-महासागरीय कटकों से ऊष्मा प्रवाह

(2) **Tidal forces exerted by the sun and the moon / सूर्य और चंद्रमा द्वारा लगाए गए ज्वारीय बल ✔**

(3) Equatorward gravitational pull due to Earth's ellipsoidal shape / पृथ्वी के दीर्घवृत्ताकार आकार के कारण विषुवत् रेखा की ओर गुरुत्वाकर्षण खिंचाव

(4) Frictional drag of ocean currents / महासागरीय धाराओं का घर्षण कर्षण

Q.233 What is the 'circle of illumination'?

'प्रदीप्ति वृत्त (circle of illumination)' क्या होता है?

(1) The Earth's path of revolution / पृथ्वी का परिक्रमण मार्ग

(2) The line dividing the Earth into two hemispheres / पृथ्वी को दो गोलार्धों में विभक्त करने वाली रेखा

(3) **The boundary between the day and night sides of the Earth / पृथ्वी के दिन और रात के पार्श्वों के बीच की सीमा ✔**

(4) The Earth's axis / पृथ्वी का अक्ष

Q.234 What is the tenure of the members of the National Disaster Management Authority (NDMA)?

राष्ट्रीय आपदा प्रबंधन प्राधिकरण (NDMA) के सदस्यों का कार्यकाल कितना है?

(1) **5 years / 5 वर्ष ✔**

(2) 6 years / 6 वर्ष

(3) 3 years / 3 वर्ष

(4) 4 years / 4 वर्ष

Q.235 When the time at Greenwich (0°) is 12:00 noon, find the local time of Thimphu (Bhutan), located at 90° East longitude.

जब ग्रीनविच (0°) का समय दोपहर 12:00 बजे होता है, तब 90° पूर्वी देशांतर पर स्थित थिम्पू (भूटान) का स्थानीय समय ज्ञात कीजिए।

(1) 6:00 A.M.

(2) **6:00 P.M. ✔**

(3) 8:00 P.M.

(4) 8:00 A.M.

Q.236 What is the approximate rotational speed of the Earth at the equator?

भूमध्य रेखा पर पृथ्वी की घूर्णात्मक चाल लगभग कितनी है?

(1) 2320 km/hr

(2) **1670 km/hr ✔**

(3) 1030 km/hr

(4) 800 km/hr

Q.237 Which of the following best describes the Steady State Theory of the universe?
निम्नलिखित में से कौन-सा, ब्रह्मांड के स्थायी अवस्था सिद्धांत (Steady State Theory) का सर्वोत्तम रूप से वर्णन करता है?

(1) The universe is static and has existed for eternity without any change. / ब्रह्मांड स्थैतिक है और किसी परिवर्तन के बिना अनंत काल से विद्यमान है।

(2) The universe goes through cyclic phases of expansion and contraction. / ब्रह्मांड विस्तार और संकुचन के चक्रीय दौर से गुजरता है।

(3) The universe is contracting and will eventually collapse into a singularity. / ब्रह्मांड संकुचित हो रहा है और अंततः एकलता (singularity) में संचयित (collapse) हो जाएगा।

(4) Matter is continuously created to maintain a constant density in an expanding universe. / विस्तारित होते ब्रह्मांड में नियत घनत्व बनाए रखने के लिए द्रव्य का सतत निर्माण होता रहता है। ✓

Q.238 What is the main objective of the response phase of disaster management?
आपदा प्रबंधन के अनुक्रिया चरण का मुख्य उद्देश्य क्या है?

(1) Saving lives and reducing economic losses / जीवन बचाना और आर्थिक हानि को कम करना ✓

(2) Building back better infrastructure / बेहतर अवसंरचना का पुनर्निर्माण करना

(3) Developing awareness campaigns / जागरूकता अभियान विकसित करना

(4) Creating hazard vulnerability maps / संकट सुभेद्यता मानचित्र तैयार करना

Q.239 Where is the Kuiper Belt located in the solar system?
सौरमंडल में, कुइपर बेल्ट (Kuiper Belt) कहाँ स्थित है?

(1) Beyond the orbit of Jupiter / बृहस्पति की कक्षा से परे

(2) Between the Earth and Venus / पृथ्वी और शुक्र के बीच

(3) Beyond the orbit of Neptune / वरुण की कक्षा से परे ✓

(4) Between Mars and Jupiter / मंगल और बृहस्पति के बीच

Q.240 According to the Big Bang theory, which elements were formed first in the early universe?
बिग बैंग सिद्धांत के अनुसार, आरंभिक ब्रह्मांड में सबसे पहले कौन-से तत्व बने थे?

(1) Carbon and nitrogen / कार्बन और नाइट्रोजन

(2) Oxygen and iron / ऑक्सीजन और आयरन

(3) Hydrogen, helium and traces of lithium / हाइड्रोजन, हीलियम और लिथियम के अंश ✓

(4) Nickel and uranium / निकेल और यूरेनियम

Q.241 What is a 'Horst' in geomorphology?
भू-आकृतिविज्ञान में 'होर्स्ट (Horst)' क्या है?

(1) A valley formed due to faulting / भ्रंशन के कारण निर्मित घाटी

(2) A down-dropped block between two faults / दो भ्रंश के बीच नीचे पतित (down-dropped) ब्लॉक

(3) A mountain formed by volcanic eruption / ज्वालामुखी उद्गार से निर्मित पर्वत

(4) An uplifted block bounded by two normal faults / दो सामान्य भ्रंश से घिरा उत्थ ब्लॉक ✓

Q.242 In what type of topography does trellis drainage develop?
ट्रेलिस अपवाहतंत्र (Trellis drainage) किस प्रकार की स्थलाकृति में विकसित होता है?

(1) Dissected plateaus with steep slopes / खड़ी ढालों वाले विच्छेदित पठार

(2) Volcanic plateaus with radial drainage / अरीय अपवाहतंत्र वाले ज्वालामुखीय पठार

(3) Folded topography with alternating hard and soft rocks / कठोर एवं मृदु चट्टानों के साथ एकांतर रूप से मुड़ी हुई स्थलाकृति ✓

(4) Gently sloping terrain with parallel drainage / समानांतर अपवाहतंत्र वाले मंद ढाल के भूभाग

Q.243 In GIS, what is the main difference between the INTERSECT and CLIP operations?

GIS में, इंटरसेक्ट (INTERSECT) और क्लिप (CLIP) ऑपरेशन के बीच मुख्य अंतर क्या है?

(1) CLIP works only when both the input and analysis layers are raster data. / क्लिप केवल तभी कार्य करता है, जब इनपुट और एनालिसिस दोनों लेयर रास्टर डेटा (raster data) हों।

(2) INTERSECT can be used even without an analysis layer. / इंटरसेक्ट का उपयोग एनालिसिस लेयर के बिना भी किया जा सकता है।

(3) INTERSECT always keeps the entire input layer unchanged. / इंटरसेक्ट संपूर्ण इनपुट लेयर को सदैव अपरिवर्तित रखता है।

(4) INTERSECT keeps only the overlapping features between the input and analysis layers. / इंटरसेक्ट केवल इनपुट और एनालिसिस लेयर के बीच ओवरलैपिंग विशेषताओं को रखता है। ✔

Q.244 According to the Big Bang theory, approximately when did the Big Bang event occur?

बिग बैंग सिद्धांत के अनुसार, बिग बैंग घटना लगभग कब घटित हुई थी?

(1) 100 million years ago / 100 मिलियन वर्ष पूर्व

(2) 10 billion years ago / 10 बिलियन वर्ष पूर्व

(3) 13.7 billion years ago / 13.7 बिलियन वर्ष पूर्व ✔

(4) 4.6 billion years ago / 4.6 बिलियन वर्ष पूर्व

Q.245 Which of the following statements best represents the global scope of political geography?

निम्नलिखित में से कौन-सा कथन, राजनीतिक भूगोल के वैश्विक कार्यक्षेत्र को सर्वोत्तम रूप से निरूपित करता है?

(1) Today's political systems are mostly unconnected to each other. / आज की राजनीतिक व्यवस्थाएं अधिकांशतः एक-दूसरे से असंबद्ध होती हैं।

(2) Political participation is increasingly becoming national and international in nature. / राजनीतिक भागीदारी, तेजी से राष्ट्रीय और अंतर्राष्ट्रीय प्रकृति की होती जा रही है। ✔

(3) People living in remote areas remain unaffected by global politics. / दूरस्थ क्षेत्रों में रहने वाले लोग, वैश्विक राजनीति से अप्रभावित रहते हैं।

(4) The scope of political geography is limited to regional events. / राजनीतिक भूगोल का कार्यक्षेत्र, क्षेत्रीय घटनाओं तक सीमित होता है।

Q.246 In the population studies of India, which year is considered the 'Demographic Divide'?

भारत के जनसंख्या अध्ययन में, किस वर्ष को 'जनसांख्यिकीय डिवाइड (Demographic Divide)' माना जाता है?

(1) 1953

(2) 1911

(3) 1921 ✔

(4) 1951

Q.247 Which of the following countries can currently be considered examples of the First Stage?

निम्नलिखित में से किन देशों को वर्तमान में फ़र्स्ट स्टेज (First Stage) का उदाहरण माना जा सकता है?

(1) Sweden and Norway / स्वीडन और नॉर्वे

(2) South Africa and Egypt / दक्षिण अफ्रीका और मिस्र

(3) Argentina and Brazil / अर्जेंटीना और ब्राज़ील

(4) Sierra Leone and Somalia / सिएरा लियोन और सोमालिया ✔

Q.248 The Punjab Himalayas are bounded by which rivers?

पंजाब हिमालय किन नदियों से घिरा हुआ है?

(1) Ganga and Yamuna / गंगा और यमुना

(2) Kali and Teesta / काली और तीस्ता

(3) Sutlej and Kali / सतलुज और काली

(4) **Indus and Sutlej / सिंधु और सतलुज ✔**

Q.249 In Malthus's theory, what is meant by the term positive checks?

माल्थस के सिद्धांत में, प्राकृतिक निरोध (positive checks) पद का क्या तात्पर्य है?

(1) Moral restraint on population / जनसंख्या पर नैतिक नियंत्रण

(2) Technological progress / प्रौद्योगिकी प्रगति

(3) Incentives for large families / बड़े परिवारों के लिए प्रोत्साहन

(4) **Measures such as war, famine and disease / युद्ध, अकाल और बीमारी जैसे उपाय ✔**

Q.250 Which of the following best illustrates the interdisciplinary nature of political geography?

निम्नलिखित में से कौन-सा, राजनीतिक भूगोल की अंतर्विषयक प्रकृति को सर्वोत्तम रूप से दर्शाता है?

(1) **Influence of economic transitions and multinational corporations on political activities / राजनीतिक गतिविधियों पर आर्थिक संक्रमणों और बहुराष्ट्रीय निगमों का प्रभाव ✔**

(2) Use of regional dialects in local governance / स्थानीय शासन में क्षेत्रीय बोलियों का उपयोग

(3) Study of international football tournaments / अंतर्राष्ट्रीय फुटबॉल टूर्नामेंटों का अध्ययन

(4) Study of mountain formation / पर्वत निर्माण का अध्ययन

Q.251 Which of the following is the region located just south of the Bhabar belt, characterised by marshy and swampy conditions?

भाबर बेल्ट के ठीक दक्षिण में स्थित क्षेत्र निम्नलिखित में से कौन-सा है जो कीचड़दार एवं दलदली (marshy and swampy) परिस्थितियों से युक्त है?

(1) Khadar / खादर

(2) Bhangar / भांगर

(3) Doab / दोआब

(4) **Terai / तराई ✔**

Q.252 In which eon did the formation of oceans and continents begin?

किस महाकल्प में महासागरों और महाद्वीपों का निर्माण शुरू हुआ?

(1) Cambrian / कैम्ब्रियन (Cambrian)

(2) Jurassic / जुरैसिक (Jurassic)

(3) Proterozoic / प्रोटीरोज़ोइक (Proterozoic)

(4) **Archaean / आर्कियन (Archaean) ✔**

Q.253 How can a nation-state be defined?

किसी राष्ट्र-राज्य (nation-state) को किस रूप में परिभाषित किया जा सकता है?

(1) An empire with hereditary rule over multiple territories. / एक ऐसा साम्राज्य जिसका बहु क्षेत्रों पर वंशानुगत शासन हो।

(2) A state governed by international organisations. / एक ऐसा राज्य जिस पर शासन, अंतर्राष्ट्रीय संगठनों द्वारा किया जाता हो।

(3) A sovereign state with clear territorial boundaries and governed by its population. / एक संप्रभु राज्य जिसकी स्पष्ट क्षेत्रीय सीमाएं हों तथा जनसंख्या द्वारा शासित हो। ✔

(4) A state governed by multiple nations without any definite boundary. / एक ऐसा राज्य जिस पर शासन किसी निश्चित सीमा के बिना बहु राष्ट्रों द्वारा किया जाता हो।

Q.254 In which mountain range are the Bhor Ghat and Thal Ghat located?

भोर घाट और थाल घाट किस पर्वतमाला में स्थित हैं?

(1) Aravalli / अरावली

(2) Vindhya / विंध्य

(3) Western Ghats / पश्चिमी घाट ✔

(4) Eastern Ghats / पूर्वी घाट

Q.255 According to the World Migration Report (2024), which of the following countries is NOT one of the top destination countries for Indian migrants?

विश्व प्रवासन रिपोर्ट (2024) के अनुसार, निम्नलिखित में से कौन-सा देश भारतीय प्रवासियों के गंतव्य वाले शीर्ष देशों में से एक नहीं है?

(1) UAE / यूएई (UAE)

(2) United Kingdom / यूनाइटेड किंगडम (United Kingdom) ✔

(3) Saudi Arabia / सऊदी अरब (Saudi Arabia)

(4) USA / यूएसए (USA)

Q.256 One of the main goals of nationalisation is to:

राष्ट्रीयकरण का एक मुख्य लक्ष्य है:

(1) promote global unity / वैश्विक एकता को बढ़ावा देना

(2) encourage foreign investment / विदेशी निवेश को प्रोत्साहित करना

(3) foster emotional commitment to the homeland / मातृभूमि के प्रति भावनात्मक प्रतिबद्धता को बढ़ावा देना ✔

(4) erase local identities / स्थानीय पहचानों को मिटाना

Q.257 What was the population growth rate of India during the decade 2001-2011?

2001-2011 के दशक के दौरान भारत की जनसंख्या वृद्धि दर कितनी थी?

(1) 19.2%

(2) 17.7% ✔

(3) 21.5%

(4) 15.3%

Q.258 What is the northern part of the Eastern Coastal Plain of India called?

भारत के पूर्वी तटीय मैदान के उत्तरी भाग को क्या कहा जाता है?

(1) Konkan Coast / कोंकण तट

(2) Malabar Coast / मालाबार तट

(3) Coromandel Coast / कोरोमंडल तट

(4) Northern Circars / उत्तरी सरकार ✔

Q.259 What is the main function of GIS software in data storage and management?

डाटा स्टोरेज और प्रबंधन में GIS सॉफ्टवेयर का मुख्य कार्य क्या है?

(1) Sending GPS signals to satellites / उपग्रहों को GPS सिग्नल भेजना

(2) Creating artistic maps / कलात्मक मानचित्र बनाना

(3) **Organising location, situation and attribute-based data / स्थान, संस्थिति और गुण आधारित डेटा व्यवस्थित करना ✔**

(4) Converting images into sound / इमेज को ध्वनि में कन्वर्ट करना

Q.260 The Ravi river originates from _____.

रावी नदी, _____ से निकलती है।

(1) the valley near Manali town / मनाली शहर के निकट घाटी

(2) **the Bara Bhangal area of Kangra district / कांगड़ा जिले के बारा भंगल क्षेत्र ✔**

(3) the Rohtang Pass of Himachal Pradesh / हिमाचल प्रदेश के रोहतांग दर्रे

(4) the Beas Kund of the Himalayas / हिमालय के व्यास कुंड

Q.261 Which of the following is an example of a socio-natural hazard?

निम्नलिखित में से कौन-सा, सामाजिक-प्राकृतिक संकट का एक उदाहरण है?

(1) War / युद्ध

(2) Lightning strike / तड़ित पात (बिजली गिरना)

(3) **Floods caused by deforestation / वनों की कटाई के कारण आने वाली बाढ़ ✔**

(4) Oil spill / तेल रिसाव

Q.262 Which of the following cities is NOT directly connected to the Golden Quadrilateral?

निम्नलिखित में से कौन-सा शहर, स्वर्णिम चतुर्भुज से प्रत्यक्ष रूप से जुड़ा हुआ नहीं है?

(1) Delhi / दिल्ली

(2) Chennai / चेन्नई

(3) **Bengaluru / बेंगलुरु ✔**

(4) Kolkata / कोलकाता

Q.263 Which of the following satellites was launched by India in 1981 using the Ariane rocket?

1981 में भारत द्वारा एरियन रॉकेट (Arian rocket) का उपयोग करके, निम्नलिखित में से कौन-सा उपग्रह (satellite) लांच किया गया था?

(1) Bhaskar-I / भास्कर-I (Bhaskar-I)

(2) **APPLE / एप्पल (APPLE) ✔**

(3) Rohini / रोहिणी (Rohini)

(4) INSAT I-B / इन्सैट I-बी (INSAT I-B)

Q.264 Darwin's theory for the transformation of fringing coral reefs was another factor that introduced _____ ideas in geomorphology, which were later carried forward by others.

तटीय प्रवाल भित्ति के रूपांतरण के लिए डार्विन का सिद्धांत एक अन्य कारक था जिसने भू-आकृति विज्ञान में _____ विचारों को प्रवर्तित किया, जिसे बाद में अन्य लोगों द्वारा आगे बढ़ाया गया।

(1) stepping / स्टेपिंग (stepping)

(2) cascading / कैस्केडिंग (cascading)

(3) linear / रेखीय (linear)

(4) **cyclic / चक्रीय (cyclic) ✔**

Q.265 What is a socio-natural hazard?

सामाजिक-प्राकृतिक (socio-natural) संकट क्या है?

(1) Hazards that occur only in rural areas / केवल ग्रामीण क्षेत्रों में होने वाले संकट

(2) **Hazards arising from both natural forces and human activities / प्राकृतिक शक्तियों और मानवीय गतिविधियों दोनों से उत्पन्न संकट ✔**

(3) Hazards generated by society through communication / संचार के माध्यम से समाज द्वारा उत्पन्न संकट

(4) Hazards arising only from climate change / केवल जलवायु परिवर्तन से उत्पन्न संकट

Q.266 What is a major cause of geometric distortion in remote sensing images?

सुदूर संवेदन प्रतिबिंबों में ज्यामितीय विरूपण का एक प्रमुख कारण क्या है?

(1) Atmospheric conditions / वायुमंडलीय परिस्थितियां

(2) Sensor overheating / सेंसर अतितापन

(3) Improper file format / अनुचित फाइल फार्मेट

(4) **Relief displacement and the Earth's rotation / उच्चावच विस्थापन और पृथ्वी का घूर्णन ✔**

Q.267 On which two islands of Kochi lake is the Kochi port located?

कोच्चि पत्तन, कोच्चि झील के किन दो द्वीपों पर स्थित है?

(1) **Willingdon Island and Vallarpadam / विलिंगडन द्वीप और वल्लारपदम ✔**

(2) Rameswaram and Dhanushkodi / रामेश्वरम और धनुषकोडी

(3) Elephanta Island and Salsette Island / एलीफेंटा द्वीप और साल्सेट द्वीप

(4) Havelock and Neil Island / हैवलॉक और नील द्वीप

Q.268 What marks the end of the continental shelf?

महाद्वीपीय मग्नतट के अंत को क्या चिह्नित करता है?

(1) Abyssal hill / वितलीय पहाड़ी

(2) **Shelf break / मग्नतट विच्छेद (शेल्फ ब्रेक) ✔**

(3) Continental plain / महाद्वीपीय मैदान

(4) Oceanic ridge / महासागरीय कटक

Q.269 Which of the following best describes the relationship between spatial and non-spatial data in GIS?

निम्नलिखित में से कौन-सा, GIS में स्थानिक और गैर-स्थानिक डेटा के बीच संबंध का सर्वोत्तम रूप से वर्णन करता है?

(1) They are completely unrelated. / वे पूर्णतः असंबद्ध होते हैं।

(2) Spatial data is used only for cities; non-spatial data is used for rural areas. / स्थानिक डेटा का उपयोग केवल शहरों के लिए किया जाता है; गैर-स्थानिक डेटा का उपयोग ग्रामीण क्षेत्रों के लिए किया जाता है।

(3) **Spatial data provides geographic context; non-spatial data adds descriptive attributes. / स्थानिक डेटा भौगोलिक संदर्भ प्रदान करता है; गैर-स्थानिक डेटा वर्णनात्मक गुण जोड़ता है। ✔**

(4) Non-spatial data defines location, whereas spatial data describes attributes. / गैर-स्थानिक डेटा, स्थान को परिभाषित करता है, जबकि स्थानिक डेटा विशेषताओं का वर्णन करता है।

Q.270 Where do the highest tides in the world occur?

विश्व में सबसे ऊंचा ज्वार (highest tides) कहाँ आता है?

(1) Bay of Bengal, India / बंगाल की खाड़ी, भारत

(2) **Bay of Fundy, Canada / फंडी की खाड़ी, कनाडा ✔**

(3) Hudson Bay, Canada / हडसन की खाड़ी, कनाडा

(4) Gulf of Mexico, USA / मेक्सिको की खाड़ी, USA

Q.271 Which type of coral reef is directly attached to the shore with no significant lagoon in between?
किस प्रकार की प्रवाल भित्ति सीधे तट से जुड़ी होती है जिसके बीच कोई विशेष लैगून नहीं होता है?

(1) Barrier reef / प्रवाल रोधिका (Barrier reef)
(2) **Fringing reef / तटीय प्रवालभित्ति (Fringing reef) ✔**
(3) Shelf reef / शेल्फ भित्ति (Shelf reef)
(4) Atoll reef / प्रवालद्वीपवलय भित्ति (Atoll reef)

Q.272 Which of the following is NOT a direct output of the Point-in-Polygon overlay operation?
निम्नलिखित में से कौन-सा, पॉइंट-इन-पॉलीगॉन ओवरले ऑपरेशन (Point-in-Polygon overlay operation) का प्रत्यक्ष आउटपुट नहीं है?

(1) Merging two point layers / टू पॉइंट लेयर (two point layers) को मर्ज करना
(2) Interpolating between multiple points / कई पॉइंट के बीच अंतर्वेशन (interpolate) करना
(3) **Identifying which points fall within which polygon boundary / यह पहचान करना कि कौन-से पॉइंट किस पॉलीगॉन सीमा के अंतर्गत आते हैं ✔**
(4) Creating a 3D model / 3D मॉडल बनाना

Q.273 Which type of sensor is usually used to collect thermal remote sensing data?
थर्मल रिमोट सेंसिंग डेटा (thermal remote sensing data) एकत्र करने के लिए प्रायः किस प्रकार के सेंसर का उपयोग किया जाता है?

(1) Radar sensor / रडार सेंसर (Radar sensor)
(2) Push-broom sensor / पुश-ब्रूम सेंसर (Push-broom sensor)
(3) Passive microwave sensor / पैसिव माइक्रोवेव सेंसर (Passive microwave sensor)
(4) **Across-track scanning sensor / एक्रॉस-ट्रैक स्कैनिंग सेंसर (Across-track scanning sensor) ✔**

Q.274 What does the Greek letter λ (lambda) represent in electromagnetic radiation?
विद्युत चुंबकीय विकिरण में ग्रीक अक्षर λ (लैम्डा) क्या निरूपित करता है?

(1) Amplitude / आयाम
(2) Speed / चाल
(3) **Wavelength / तरंगदैर्ध्य ✔**
(4) Frequency / आवृत्ति

Q.275 Which was the first major port established in independent India?
स्वतंत्र भारत में स्थापित पहला प्रमुख पत्तन कौन-सा था?

(1) Visakhapatnam Port / विशाखापत्तनम पत्तन
(2) **Paradip Port / पारादीप पत्तन ✔**
(3) Kandla Port / कांडला पत्तन
(4) Mumbai Port / मुंबई पत्तन

Q.276 What is the purpose of atmospheric correction in remote sensing?
सुदूर संवेदन में वायुमंडलीय संशोधन का उद्देश्य क्या है?

(1) To increase storage capacity / भंडारण क्षमता को बढ़ाना
(2) To adjust for relief displacement / उच्चावच विस्थापन का समायोजन करना
(3) To change the colour of the image / प्रतिबिंब का रंग बदलना
(4) **To adjust for scattering, absorption and transmittance / प्रकीर्णन, अवशोषण और पारगम्यता के लिए समायोजन करना ✔**

Q.277 Where are abyssal plains typically located?

वितलीय मैदान (abyssal plains) विशिष्ट रूप से कहाँ स्थित होते हैं?

(1) Between the continental rise and the mid-oceanic ridge / महाद्वीपीय उत्थान और मध्य-महासागरीय कटक के बीच ✔

(2) Near river mouths on continental coasts / महाद्वीपीय तटों पर नदी के मुहाने के निकट

(3) At the base of coastal cliffs / तटीय भृगुओं के आधार पर

(4) Inside shallow seas / उथले समुद्रों के अंदर

Q.278 Where is the Challenger Deep located?

चैलेंजर डीप (Challenger Deep) कहाँ स्थित है?

(1) In the Mariana Trench / मारियाना ट्रेंच में ✔

(2) In the Philippine Sea / फिलीपीन सागर में

(3) In the Atlantic Ocean / अटलांटिक महासागर में

(4) In the Tonga Trench / टोंगा ट्रेंच में

Q.279 Which part of the North Pacific Ocean, located between Alaska and Russia, is known for its rich marine life and important fishing grounds?

अलास्का और रूस के बीच स्थित उत्तरी प्रशांत महासागर का कौन-सा भाग अपने समृद्ध समुद्री जीवन और महत्वपूर्ण मत्स्यन क्षेत्रों के लिए जाना जाता है?

(1) Tasman Sea / तस्मान सागर (Tasman Sea)

(2) Okhotsk Sea / ओखोटस्क सागर (Okhotsk Sea)

(3) Beaufort Sea / ब्यूफोर्ट सागर (Beaufort Sea)

(4) Bering Sea / बेरिंग सागर (Bering Sea) ✔

Q.280 Disasters cause economic loss mainly due to _____.

आपदाओं से मुख्यतः _____ के कारण आर्थिक हानि होती है।

(1) increase in imports / आयात में वृद्धि

(2) lack of foreign investment / विदेशी निवेश की कमी

(3) destruction of property and infrastructure / संपत्ति और अवसरंचना के विनाश ✔

(4) inflation in fuel prices / ईंधन की कीमतों में स्फीति

Teaching Methodology

Q.281 Which of the following can be considered as a major development task for a child during the first 6 years of life?

निम्नलिखित में से किसे जीवन के पहले 6 वर्षों के दौरान बच्चे के लिए एक प्रमुख विकासात्मक कार्य माना जा सकता है?

(1) Rational thinking / तार्किक चिंतन

(2) Gender identification / लैंगिक पहचान ✔

(3) Recognising the personality / व्यक्तित्व को पहचानना

(4) Abstract reasoning / अमूर्त तर्कणा

Q.282 Which of the following characteristics is NOT suitable in a scientific discourse?

निम्नलिखित में से कौन-सी विशेषता, वैज्ञानिक विमर्श में उपयुक्त नहीं है?

(1) Use of narrative, colloquial and dramatic words / आख्यानात्मक, बोलचाल के और नाटकीय शब्दों का प्रयोग ✔

(2) Use of language in an objective way / भाषा का वस्तुनिष्ठ रूप से प्रयोग

(3) Use of non-linguistic modes of representation of facts / तथ्यों के निरूपण के लिए गैर-भाषाई माध्यमों का प्रयोग

(4) Use of specialised vocabulary and terms pertaining to the discipline / विषय से संबंधित विशिष्ट शब्दावली और पदों का प्रयोग

Q.283 The feeling of considering oneself male, female or transgender is called _____.

स्वयं को पुरुष, महिला या विपरीतलिंगी मानने की भावना को _____ कहा जाता है।

(1) gender inequality / लैंगिक असमानता (gender inequality)

(2) gender equality / लैंगिक समानता (gender equality)

(3) gender norms / लैंगिक मानदंड (gender norms)

(4) gender identity / लैंगिक पहचान (gender identity) ✔

Q.284 The Persons with Disabilities Act, 1995 was replaced by which of the following?

निम्नलिखित में से किसके द्वारा निःशक्त जन अधिनियम, 1995 (Person with Disability Act, 1995) को प्रतिस्थापित किया गया?

(1) Rights of Persons with Disabilities Act, 2016 / दिव्यांगजन अधिकार अधिनियम, 2016 ✔

(2) Sarva Shiksha Abhiyan / सर्व शिक्षा अभियान

(3) Right to Education, 2009 / शिक्षा का अधिकार, 2009

(4) Special Educational Needs and Persons with Disabilities Act, 2001 / विशेष शैक्षिक आवश्यकताएँ एवं दिव्यांगजन अधिनियम, 2001

Q.285 Which of the following is related to a discipline?

निम्नलिखित में से कौन-सा विद्या-शाखा (discipline) से संबंधित है?

(1) A curriculum-based unit of study / अध्ययन की पाठ्यचर्या-आधारित इकाई

(2) Ancestral knowledge system / पैतृक ज्ञान प्रणाली

(3) Consideration of the level of maturity / परिपक्वता के स्तर पर विचार

(4) A specific field of study / अध्ययन का विशिष्ट क्षेत्र ✔

Q.286 Learning resources should be selected on the basis of _____.

अधिगम संसाधनों का चयन _____ के आधार पर किया जाना चाहिए।

(1) relevance to objectives / उद्देश्यों की प्रासंगिकता ✔

(2) availability only / केवल उपलब्धता

(3) popularity only / केवल लोकप्रियता

(4) the teacher's preference / शिक्षक की प्राथमिकता

Q.287 Which element plays a central role in the implementation of assessment of learning?

अधिगम के मूल्यांकन के कार्यान्वयन में कौन-सा तत्व केंद्रीय भूमिका निभाता है?

(1) Learner feedback / शिक्षार्थी प्रतिपुष्टि (Learner feedback) ✔

(2) Score calculation / अंक गणना (Score calculation)

(3) Exam scheduling / परीक्षा समय-निर्धारण (Exam scheduling)

(4) Test proctoring / परीक्षा कुलानुशासन (Test proctoring)

Q.288 In which of the teaching strategies advocated by Vygotsky will the teacher and the learner play the role of partners and demonstrate co-learning?

वाइगोत्स्की द्वारा पक्ष-समर्थित शिक्षण रणनीतियों में से किसमें शिक्षक और शिक्षार्थी साझेदारी की भूमिका निभाएंगे और सह-अधिगम प्रदर्शित करेंगे?

(1) Reflective teaching / चिंतनशील शिक्षण (Reflective teaching)

(2) Differentiated teaching / विभेदित शिक्षण (Differentiated teaching)

(3) Team teaching / दल शिक्षण (Team teaching)

(4) Reciprocal teaching / पारस्परिक शिक्षण (Reciprocal teaching) ✔

Q.289 Which of the following is an example of gender identity?

निम्नलिखित में से कौन-सा, जेंडर पहचान (gender identity) का उदाहरण है?

(1) The number of males and females in a class / किसी कक्षा में पुरुषों और महिलाओं की संख्या

(2) A legal document identifying a person's sex / किसी व्यक्ति के लिंग की पहचान करने वाला कानूनी दस्तावेज़ ✔

(3) Self-identification as male or female, disregarding biological sex / जैविक लिंग की उपेक्षा करते हुए पुरुष या महिला के रूप में आत्म-पहचान

(4) The biological characteristics of a person at birth / जन्म के समय किसी व्यक्ति का जैविक अभिलक्षण

Q.290 According to Vygotsky, in which zone is learning process ever occurring?

वाइगोत्स्की के अनुसार, अधिगम प्रक्रिया सदैव किस क्षेत्र में घटित होती है?

(1) Zone of Personal Development / व्यक्तिगत विकास का क्षेत्र

(2) Zone of Cognitive Development / संज्ञानात्मक विकास का क्षेत्र

(3) Zone of Proximal Development / समीपस्थ विकास का क्षेत्र ✔

(4) Zone of Knowledge Development / ज्ञान विकास का क्षेत्र

Q.291 Assessment is different from evaluation. Assessment _____.

आकलन, मूल्यांकन से भिन्न होता है। आकलन _____ ।

(1) focuses on improving learning / अधिगम में सुधार पर केंद्रित होता है ✔

(2) always uses grading / सदैव श्रेणीकरण का उपयोग करता है

(3) focuses only on behaviour / केवल व्यवहार पर केंद्रित होता है

(4) is broader than evaluation / मूल्यांकन से व्यापक होता है

Q.292 Content validity of an objective means that it _____.

किसी उद्देश्य की विषय-वस्तु की वैधता का अर्थ है कि वह _____।

(1) uses complex words / जटिल शब्दों का प्रयोग करता है

(2) reflects the intended curriculum / उद्देश्यपरक पाठ्यचर्या को दर्शाता है ✔

(3) is open to students' interpretation / विद्यार्थियों की व्याख्या के लिए खुला है

(4) is aligned with examination papers / परीक्षा पत्रों के साथ संरेखित है

Q.293 Which of the following is NOT considered a major approach to curriculum?

निम्नलिखित में से किसे पाठ्यचर्या का प्रमुख उपागम नहीं माना जाता है?

(1) Broadfields approach / ब्रॉडफ़ील्ड उपागम (Broadfields approach)

(2) Subject centred approach / विषय-केंद्रित उपागम (Subject centred approach)

(3) Social problems approach / सामाजिक समस्याओं का उपागम (Social problems approach)

(4) Linguistic approach / भाषा-विषयक उपागम (Linguistic approach) ✔

Q.294 Which of the following objectives is mainly to enhance recall and recognition skills in learners?
निम्नलिखित में से कौन-सा उद्देश्य मुख्य रूप से अधिगमकर्ताओं में पुन:स्मरण और पहचान कौशल को बढ़ाना है?

(1) Application objectives / अनुप्रयोग के उद्देश्य (Application objectives)
(2) Understanding objectives / बोध के उद्देश्य (Understanding objectives)
(3) Creativity objectives / सृजनात्मकता के उद्देश्य (Creativity objectives)
(4) Knowledge objectives / ज्ञान के उद्देश्य (Knowledge objectives) ✔

Q.295 Which of the following helps teachers and parents the most in correctly guiding a child's learning?
निम्नलिखित में से कौन-सा तरीका, शिक्षकों एवं अभिभावकों को बच्चे के अधिगम को सही रूप से निर्देशित करने में सबसे अधिक सहायता करता है?

(1) Religious patterns / धार्मिक पैटर्न (Religious patterns)
(2) Food patterns / भोजन का पैटर्न (Food patterns)
(3) Development patterns / विकास पैटर्न (Development patterns) ✔
(4) Morning wakeup patterns / प्रातःकाल उठने का पैटर्न (Morning wakeup patterns)

Q.296 Ensure inclusive and equitable quality education and promote lifelong learning opportunities for all. Which of the following documents best describes this?
समावेशी एवं समान समतामूलक शिक्षा सुनिश्चित करें और सभी के लिए आजीवन अधिगम के अवसरों को बढ़ावा दें। निम्नलिखित में से कौन-सा प्रलेख (दस्तावेज़) इसका सर्वोत्तम वर्णन करता है?

(1) National Policy on Education, 1986 / राष्ट्रीय शिक्षा नीति, 1986
(2) Right to Education, 2009 / शिक्षा का अधिकार, 2009
(3) National Policy on Education, 1968 / राष्ट्रीय शिक्षा नीति, 1968
(4) National Education Policy, 2020 / राष्ट्रीय शिक्षा नीति, 2020 ✔

Q.297 Which of the following is NOT a sign of an effective learner?
निम्नलिखित में से कौन-सा, एक प्रभावी शिक्षार्थी का लक्षण नहीं है?

(1) Has a closed mind / संकीर्ण मानसिकता रखता है ✔
(2) Regulates behaviour / व्यवहार को नियंत्रित करता है
(3) Does things creatively / कार्यों को सृजनात्मक ढंग से करता है
(4) Thinks critically / आलोचनात्मक चिंतन करता है

Q.298 The systematic, objective and quantitative analysis of message characteristics is known as _____.
संदेश की विशेषताओं के व्यवस्थित, वस्तुनिष्ठ एवं मात्रात्मक विश्लेषण को _____ के रूप में जाना जाता है।

(1) problem-solving / समस्या-समाधान (problem-solving)
(2) dissertation / शोध-निबंध (dissertation)
(3) thesis / वाद (thesis)
(4) content analysis / विषय-वस्तु विश्लेषण (content analysis) ✔

Q.299 Which of the following domains is most related to art education?
निम्नलिखित में से कौन-सा क्षेत्र कला शिक्षा से सबसे अधिक संबंधित है?

(1) Reasoning / विवेचन (Reasoning)
(2) Knowledge / ज्ञान (Knowledge)
(3) Affective / भावात्मक (Affective) ✔
(4) Understanding / समझ (Understanding)

Q.300 Which of the following is NOT an example of a multidisciplinary approach?

निम्नलिखित में से कौन-सा बहुअनुशासनिक उपागम का उदाहरण नहीं है?

(1) Health care / स्वास्थ्य सेवा (Health care)

(2) Military-industry interface / सैन्य-उद्योग इंटरफ़ेस (Military-industry interface)

(3) Urban planning / शहरी नियोजन (Urban planning)

(4) Pure mathematics / शुद्ध गणित (Pure mathematics) ✔

Answer Key / उत्तर कुंजी

1 2	**2** 1	**3** 4	**4** 1	**5** 2	**6** 2	**7** 2	**8** 1	**9** 3	**10** 3	**11** 2	**12** 4	**13** 4	**14** 4	**15** 1
16 1	**17** 2	**18** 3	**19** 4	**20** 3	**21** 2	**22** 3	**23** 4	**24** 1	**25** 1	**26** 4	**27** 2	**28** 4	**29** 2	**30** 3
31 2	**32** 4	**33** 1	**34** 1	**35** 2	**36** 2	**37** 4	**38** 3	**39** 3	**40** 2	**41** 2	**42** 3	**43** 3	**44** 2	**45** 1
46 4	**47** 4	**48** 1	**49** 3	**50** 4	**51** 1	**52** 3	**53** 1	**54** 3	**55** 4	**56** 1	**57** 3	**58** 2	**59** 2	**60** 1
61 3	**62** 3	**63** 2	**64** 4	**65** 4	**66** 1	**67** 3	**68** 2	**69** 4	**70** 2	**71** 1	**72** 3	**73** 2	**74** 4	**75** 2
76 1	**77** 2	**78** 2	**79** 2	**80** 4	**81** 3	**82** 1	**83** 2	**84** 2	**85** 1	**86** 4	**87** 3	**88** 3	**89** 1	**90** 2
91 3	**92** 1	**93** 4	**94** 4	**95** 4	**96** 3	**97** 1	**98** 2	**99** 4	**100** 4	**101** 2	**102** 3	**103** 1	**104** 3	**105** 1
106 2	**107** 4	**108** 1	**109** 3	**110** 4	**111** 1	**112** 4	**113** 4	**114** 2	**115** 3	**116** 1	**117** 3	**118** 1	**119** 4	**120** 3
121 1	**122** 1	**123** 2	**124** 1	**125** 3	**126** 4	**127** 2	**128** 4	**129** 1	**130** 2	**131** 4	**132** 2	**133** 3	**134** 1	**135** 1
136 2	**137** 2	**138** 2	**139** 4	**140** 2	**141** 3	**142** 1	**143** 1	**144** 2	**145** 2	**146** 4	**147** 2	**148** 4	**149** 3	**150** 1
151 2	**152** 1	**153** 3	**154** 4	**155** 4	**156** 1	**157** 3	**158** 3	**159** 4	**160** 1	**161** 1	**162** 4	**163** 1	**164** 4	**165** 3
166 3	**167** 1	**168** 3	**169** 1	**170** 3	**171** 2	**172** 2	**173** 1	**174** 2	**175** 2	**176** 3	**177** 2	**178** 2	**179** 4	**180** 3
181 1	**182** 1	**183** 2	**184** 2	**185** 3	**186** 1	**187** 2	**188** 4	**189** 1	**190** 3	**191** 2	**192** 2	**193** 2	**194** 1	**195** 4
196 1	**197** 1	**198** 2	**199** 1	**200** 2	**201** 2	**202** 4	**203** 4	**204** 2	**205** 1	**206** 2	**207** 1	**208** 4	**209** 4	**210** 1
211 3	**212** 1	**213** 3	**214** 3	**215** 2	**216** 2	**217** 2	**218** 4	**219** 4	**220** 3	**221** 2	**222** 3	**223** 1	**224** 2	**225** 4
226 4	**227** 4	**228** 2	**229** 2	**230** 2	**231** 3	**232** 2	**233** 3	**234** 1	**235** 2	**236** 2	**237** 4	**238** 1	**239** 3	**240** 3
241 4	**242** 3	**243** 4	**244** 3	**245** 2	**246** 3	**247** 4	**248** 4	**249** 4	**250** 1	**251** 4	**252** 4	**253** 3	**254** 3	**255** 2
256 3	**257** 2	**258** 4	**259** 3	**260** 2	**261** 3	**262** 3	**263** 2	**264** 4	**265** 2	**266** 4	**267** 1	**268** 2	**269** 3	**270** 2
271 2	**272** 3	**273** 4	**274** 3	**275** 2	**276** 4	**277** 1	**278** 1	**279** 4	**280** 3	**281** 2	**282** 1	**283** 4	**284** 1	**285** 4

QuickSarkari.com | WhatsApp Channel | Telegram: t.me/quick_sarkari

286	287	288	289	290	291	292	293	294	295	296	297	298	299	300
1	1	4	2	3	1	2	4	4	3	4	1	4	3	4

Quick Sarkari

DSSSB Exam July 2025

Participant ID	
Participant Name	
Test Center Name	
Test Date	25/07/2025
Test Time	9:00 AM - 12:00 PM
Subject	PGT Geography

Section : **Mental Ability and Reasoning Ability**

Q. 1 एक पंक्ति में, कुछ निश्चित संख्या में व्यक्ति उत्तर दिशा की ओर अभिमुख होकर बैठे हैं। A, B के दाईं ओर तीसरे स्थान पर बैठा है। A और C के बीच केवल दो व्यक्ति बैठे हैं। E, D के बाईं ओर तीसरे स्थान पर बैठा है। D और C के बीच केवल एक व्यक्ति बैठा है। E, B का निकटतम पड़ोसी नहीं है। यदि पंक्ति में कोई अन्य व्यक्ति नहीं बैठा है, तो बैठे हुए व्यक्तियों की कुल संख्या कितनी है?

Ans
- ✗ 1. 11
- ✓ 2. 9
- ✗ 3. 7
- ✗ 4. 8

Question ID : **441009841598**
Option 1 ID : **4410093319463**
Option 2 ID : **4410093319462**
Option 3 ID : **4410093319460**
Option 4 ID : **4410093319461**

Q. 2 एक निश्चित कूट भाषा में,
'A + B' का अर्थ है कि 'A, B की माता है',
'A − B' का अर्थ है कि 'A, B का पिता है',
'A $ B' का अर्थ है कि 'A, B का पुत्र है' और
'A % B' का अर्थ है कि 'A, B की बहन है'।

निम्नलिखित में से किसका अर्थ है कि K, L का भाई है?

(I) K − L $ J + M % N
(II) L $ K + J % N − M
(III) K − M $ N + J % L
(IV) J − K $ M + L % N

Ans
- ✓ 1. केवल (IV)
- ✗ 2. (III) और (IV)
- ✗ 3. केवल (III)
- ✗ 4. केवल (II)

Question ID : **441009841403**
Option 1 ID : **4410093318681**
Option 2 ID : **4410093318682**
Option 3 ID : **4410093318683**
Option 4 ID : **4410093318680**

QuickSarkari.com | WhatsApp Channel | Telegram: t.me/quick_sarkari

Q. 3 एक निश्चित कूट में,
'mobile govern life' को 'tu mi ba' के रूप में कूटबद्ध किया जाता है,
'politician govern country' को 'mi ka pu' के रूप में कूटबद्ध किया जाता है और
'country is life' को 'ba ka se' के रूप में कूटबद्ध किया जाता है।
(सभी कूट केवल दो-अक्षर वाले कूट हैं।)
'mobile politician' का संभावित कूट क्या है?

Ans
✗ 1. ba mi
✗ 2. pu mi
✗ 3. tu ka
✓ 4. tu pu

Question ID : **441009840903**
Option 1 ID : **4410093316682**
Option 2 ID : **4410093316683**
Option 3 ID : **4410093316681**
Option 4 ID : **4410093316680**

Q. 4 निम्नलिखित संख्या-युग्मों में, पहली संख्या पर कुछ गणितीय संक्रियाएँ करके दूसरी संख्या प्राप्त की जाती है। X और Y को किस संख्या से प्रतिस्थापित किया जाना चाहिए ताकि :: के बाईं ओर दो संख्याओं द्वारा अनुसरण किया गया पैटर्न :: के दाईं ओर दो संख्याओं द्वारा अनुसरण किए गए पैटर्न के समान हो?
(नोट: संख्याओं को उनके घटक अंकों में तोड़े बिना, पूर्ण संख्याओं पर संक्रियाएँ की जानी चाहिए। उदाहरण के लिए, 13 लीजिए - 13 पर संक्रियाएँ जैसे कि 13 में जोड़ना/घटाना/गुणा करना, आदि किया जा सकता है। 13 को 1 और 3 में तोड़ना तथा फिर 1 और 3 पर गणितीय संक्रियाएँ करने की अनुमति नहीं है।)

X : 319 :: 20 : Y

Ans
✓ 1. X = 18, Y = 395
✗ 2. X = 17, Y = 401
✗ 3. X = 18, Y = 399
✗ 4. X = 17, Y = 395

Question ID : **441009844613**
Option 1 ID : **4410093331316**
Option 2 ID : **4410093331319**
Option 3 ID : **4410093331318**
Option 4 ID : **4410093331317**

Q. 5 लक्ष्मण ने बिंदु A से गाड़ी चलाना शुरू किया और उत्तर दिशा में 5 km गाड़ी चलाई। फिर वह बाएँ मुड़ा और 10 km गाड़ी चलाई। वह फिर से बाएँ मुड़ा और 4 km गाड़ी चलाकर बिंदु B पर पहुँचा। प्रिया ने बिंदु A से गाड़ी चलाना शुरू किया और उत्तर दिशा में 5 km गाड़ी चलाई। उसने दाएँ मुड़कर 5 km और गाड़ी चलाई। उसने फिर से दाएँ मुड़कर 4 km गाड़ी चलाई और बिंदु C पर पहुँची। बिंदु C के संदर्भ में बिंदु B किस दिशा में है? (सभी मोड़ 90 डिग्री के मोड़ हैं।)

Ans
✗ 1. उत्तर
✓ 2. पश्चिम
✗ 3. पूर्व
✗ 4. दक्षिण

Question ID : **441009841593**
Option 1 ID : **4410093319442**
Option 2 ID : **4410093319441**
Option 3 ID : **4410093319440**
Option 4 ID : **4410093319443**

QuickSarkari.com | WhatsApp Channel | Telegram: t.me/quick_sarkari

Q. 6 यह प्रश्न नीचे दिए गए शब्दों पर आधारित है।

HAT DOG SIM FOE

प्रत्येक शब्द में, प्रत्येक स्वर को अंग्रेजी वर्णमाला क्रम में उसके ठीक बाद वाले अक्षर से बदल दिया गया है और प्रत्येक व्यंजन को अंग्रेजी वर्णमाला क्रम में उसके ठीक पहले वाले अक्षर से बदल दिया गया है। इस प्रकार बने कितने अक्षर-समूहों में कोई स्वर नहीं आएगा?

Ans
- ✗ 1. एक भी नहीं
- ✓ 2. तीन
- ✗ 3. एक
- ✗ 4. दो

Question ID : **441009840893**
Option 1 ID : **4410093316640**
Option 2 ID : **4410093316643**
Option 3 ID : **4410093316641**
Option 4 ID : **4410093316642**

Q. 7 अंग्रेजी वर्णमाला क्रम के आधार पर, निम्नलिखित चार अक्षर-समूह युग्मों में से तीन एक निश्चित तरीके से एकसमान हैं और इस प्रकार एक ग्रुप बनाते हैं। कौन-सा अक्षर-समूह युग्म, उस ग्रुप से संबंधित नहीं है? (नोट: असंगत अक्षर-समूह युग्म, व्यंजनों/स्वरों की संख्या या उनकी स्थिति पर आधारित नहीं है।)

Ans
- ✗ 1. JE-KM
- ✓ 2. TO-UX
- ✗ 3. QL-RT
- ✗ 4. LG-MO

Question ID : **441009841565**
Option 1 ID : **4410093319329**
Option 2 ID : **4410093319331**
Option 3 ID : **4410093319330**
Option 4 ID : **4410093319328**

Q. 8 अंग्रेजी वर्णमाला क्रम के आधार पर, निम्नलिखित चार अक्षर-समूह युग्मों में से तीन एक निश्चित तरीके से एकसमान हैं और इस प्रकार एक ग्रुप बनाते हैं। कौन-सा अक्षर-समूह युग्म, उस ग्रुप से संबंधित नहीं है? (नोट: असंगत अक्षर-समूह युग्म, व्यंजनों/स्वरों की संख्या या उनकी स्थिति पर आधारित नहीं है।)

Ans
- ✓ 1. KO-JM
- ✗ 2. OS-NR
- ✗ 3. FJ-EI
- ✗ 4. IM-HL

Question ID : **441009841436**
Option 1 ID : **4410093318814**
Option 2 ID : **4410093318815**
Option 3 ID : **4410093318812**
Option 4 ID : **4410093318813**

QuickSarkari.com | WhatsApp Channel | Telegram: t.me/quick_sarkari

Q. 9 आठ व्यक्ति, 4-4 व्यक्तियों वाली दो समानांतर पंक्तियों में इस प्रकार बैठे हैं कि आसन्न व्यक्तियों के बीच की दूरी समान है।
पंक्ति 1 में, I, N, F और O बैठे हैं और सभी दक्षिण की ओर अभिमुख होकर बैठे हैं।
पंक्ति 2 में, J, A, R और S बैठे हैं और सभी उत्तर की ओर अभिमुख होकर बैठे हैं।
इस प्रकार, प्रत्येक व्यक्ति दूसरी पंक्ति में बैठे अन्य व्यक्ति के सम्मुख बैठा है।
N, O के दाईं ओर तीसरे स्थान पर बैठा है। S, R के बाईं ओर तीसरे स्थान पर बैठा है। F, I के दाईं ओर किसी स्थान पर बैठा है और A के सम्मुख नहीं है। I के सम्मुख बैठा व्यक्ति, R का निकटतम पड़ोसी है।
निम्नलिखित में से कौन-सा विकल्प पंक्ति के छोर पर बैठे दोनों व्यक्तियों को दर्शाता है?

Ans
✗ 1. N और J
✗ 2. F और A
✓ 3. O और R
✗ 4. S और I

Question ID : **441009841351**
Option 1 ID : **4410093318472**
Option 2 ID : **4410093318474**
Option 3 ID : **4410093318475**
Option 4 ID : **4410093318473**

Q. 10 एक निश्चित तर्क के अनुसार, 43 का संबंध 26 से है। उसी तर्क के अनुसार, 87 का संबंध 70 से है। समान तर्क के अनुसार, 91 का संबंध दिए गए विकल्पों में से किससे है?

(नोट: संख्याओं को उनके घटक अंकों में तोड़े बिना संक्रियाएँ, पूर्ण संख्याओं पर की जानी चाहिए। उदाहरण के लिए, 13 लीजिए - 13 पर संक्रियाएँ जैसे कि 13 में जोड़ना/घटाना/गुणा करना, आदि की जा सकती हैं। 13 को 1 और 3 में तोड़ना तथा फिर 1 और 3 पर गणितीय संक्रियाएँ करना अनुमत नहीं है।)

Ans
✗ 1. 86
✗ 2. 78
✓ 3. 74
✗ 4. 73

Question ID : **441009844689**
Option 1 ID : **4410093331620**
Option 2 ID : **4410093331622**
Option 3 ID : **4410093331621**
Option 4 ID : **4410093331623**

Q. 11 निम्नलिखित श्रृंखला में, केवल एक अक्षर-समूह गलत है। गलत अक्षर-समूह का चयन करें।

GAU LFZ QKE VPJ AVO FZT

Ans
✗ 1. QKE
✓ 2. AVO
✗ 3. VPJ
✗ 4. FZT

Question ID : **441009841255**
Option 1 ID : **4410093318090**
Option 2 ID : **4410093318088**
Option 3 ID : **4410093318091**
Option 4 ID : **4410093318089**

Q. 12 निम्नलिखित में से कौन-सा अक्षर-समूह, # और % को प्रतिस्थापित करेगा ताकि :: के बाईं ओर के अक्षर-समूह युग्म के बीच का पैटर्न और संबंध :: के दाईं ओर के अक्षर-समूह युग्म के बीच के पैटर्न और संबंध के समान हो?

 # : TPF :: RFG : %

Ans
- ✗ 1. # = ZAT, % = KDO
- ✗ 2. # = ZZB, % = KFL
- ✗ 3. # = WTJ, % = ODZ
- ✓ 4. # = WSA, % = OCL

Question ID : **441009841602**
Option 1 ID : **4410093319479**
Option 2 ID : **4410093319478**
Option 3 ID : **4410093319477**
Option 4 ID : **4410093319476**

Q. 13 निम्नलिखित श्रृंखला को तार्किक रूप से पूर्ण बनाने के लिए, दिए गए अक्षर-संख्या समूहों में से कौन-सा, प्रश्न-चिन्ह (?) के स्थान पर आएगा?

GHJ197, MNP206, STV215, YZB224, ?

Ans
- ✗ 1. EFZ233
- ✗ 2. EFH231
- ✗ 3. GFH233
- ✓ 4. EFH233

Question ID : **441009841349**
Option 1 ID : **4410093318465**
Option 2 ID : **4410093318467**
Option 3 ID : **4410093318464**
Option 4 ID : **4410093318466**

Q. 14 यह प्रश्न नीचे दिए गए शब्दों पर आधारित है।

MAY LIE DYE FAR

प्रत्येक शब्द में, प्रत्येक व्यंजन को अंग्रेजी वर्णमाला क्रम में उसके ठीक बाद वाले अक्षर से बदल दिया जाता है, और स्वर उसी तरह रहते हैं। इस प्रकार बने कितने अक्षर-समूहों में कम से कम दो स्वर होंगे?

Ans
- ✗ 1. तीन
- ✗ 2. एक भी नहीं
- ✗ 3. एक
- ✓ 4. दो

Question ID : **441009840892**
Option 1 ID : **4410093316639**
Option 2 ID : **4410093316636**
Option 3 ID : **4410093316637**
Option 4 ID : **4410093316638**

Q. 15 नीचे संख्याओं के दो सेट दिए गए हैं। संख्याओं के प्रत्येक सेट में, पहली संख्या पर निश्चित गणितीय संक्रियाएँ करके दूसरी संख्या प्राप्त की जाती है। इसी प्रकार, दूसरी संख्या पर निश्चित गणितीय संक्रियाएँ करके तीसरी संख्या प्राप्त की जाती है, इसी प्रकार आगे की संख्याएँ प्राप्त की जाती हैं। दिए गए विकल्पों में से कौन-सा विकल्प, दिए गए सेटों में, संक्रियाओं के समान सेट का अनुसरण करता है?

(नोट: संख्याओं को उनके घटक अंकों में तोड़े बिना संक्रियाएँ, पूर्ण संख्याओं पर की जानी चाहिए। उदाहरण के लिए, 13 लीजिए - 13 पर संक्रियाएँ जैसे कि 13 में जोड़ना/घटाना/गुणा करना, आदि की जा सकती हैं। 13 को 1 और 3 में तोड़ना तथा फिर 1 और 3 पर गणितीय संक्रियाएँ करने की अनुमति नहीं है।)

5 – 25 – 50 – 55
7 – 49 – 98 – 103

Ans
✔ 1. 4 – 16 – 32 – 37

✘ 2. 1 – 1 – 2 – 10

✘ 3. 9 – 81 – 162 – 170

✘ 4. 3 – 6 – 12 – 17

Question ID : **441009844674**
Option 1 ID : **4410093331563**
Option 2 ID : **4410093331560**
Option 3 ID : **4410093331562**
Option 4 ID : **4410093331561**

Q. 16 यदि '+' और '–' को आपस में बदल दिया जाए तथा '×' और '÷' को आपस में बदल दिया जाए, तो निम्नलिखित समीकरण में प्रश्न-चिह्न (?) के स्थान पर क्या आएगा?

8442 × 2 – 103 + 202 ÷ 9 = ?

Ans
✔ 1. 2506

✘ 2. 2406

✘ 3. 2306

✘ 4. 2206

Question ID : **441009844649**
Option 1 ID : **4410093331463**
Option 2 ID : **4410093331462**
Option 3 ID : **4410093331461**
Option 4 ID : **4410093331460**

QuickSarkari.com | WhatsApp Channel | Telegram: t.me/quick_sarkari

Q. 17 P, Q, R, S, T, U और V में से प्रत्येक की परीक्षा सोमवार से शुरू होकर रविवार को समाप्त होने वाले उसी सप्ताह के अलग-अलग दिन होती है। Q की परीक्षा P से ठीक पहले है। S की परीक्षा T के ठीक बाद है। T और P के बीच केवल पाँच व्यक्तियों की परीक्षा है। V की परीक्षा R से पहले किसी एक दिन लेकिन U के बाद किसी एक दिन है। शुक्रवार को किसकी परीक्षा है?

Ans
✗ 1. Q
✓ 2. R
✗ 3. V
✗ 4. U

Question ID : **441009841582**
Option 1 ID : **4410093319396**
Option 2 ID : **4410093319398**
Option 3 ID : **4410093319397**
Option 4 ID : **4410093319399**

Q. 18 दिए गए कथन और निष्कर्षों को ध्यानपूर्वक पढ़िए। यह मानते हुए कि कथनों में दी गई जानकारी सत्य है, भले ही वह सामान्यतः ज्ञात तथ्यों से भिन्न प्रतीत होती हो, निर्णय किजिए कि दिए गए निष्कर्षों में से कौन-से निष्कर्ष कथन का तार्किक रूप से अनुसरण करते हैं।

कथन:
एक प्रमुख सॉफ्टवेयर दिग्गज, कंपनी T, ने अनिवार्य चार-दिवसीय कार्य सप्ताह के कार्यान्वयन और कल्याण कार्यक्रमों की शुरुआत के बाद कर्मचारी उत्पादकता में 30% की वृद्धि दर्ज की। इस संबंध में CEO के मतानुसार, कर्मचारी अधिक तरोताजा और प्रेरित महसूस कर रहे थे।

निष्कर्ष:
(I) कर्मचारी कल्याण, कंपनी T में उत्पादकता पर सकारात्मक प्रभाव डाल सकता है।
(II) कंपनी T में उत्पादकता में वृद्धि का एकमात्र कारण 4-दिवसीय कार्य सप्ताह है।

Ans
✗ 1. केवल निष्कर्ष II अनुसरण करता है।
✗ 2. निष्कर्ष I और II दोनों अनुसरण करते हैं।
✓ 3. केवल निष्कर्ष I अनुसरण करता है।
✗ 4. न तो निष्कर्ष I और न ही II अनुसरण करता है।

Question ID : **441009844717**
Option 1 ID : **4410093331733**
Option 2 ID : **4410093331734**
Option 3 ID : **4410093331732**
Option 4 ID : **4410093331735**

Q. दी गई आकृति का अध्ययन कीजिए और नीचे दिए गए प्रश्न का उत्तर दीजिए।
19

विभिन्न खंडों में दी गई संख्याएँ व्यक्तियों की संख्या दर्शाती हैं।

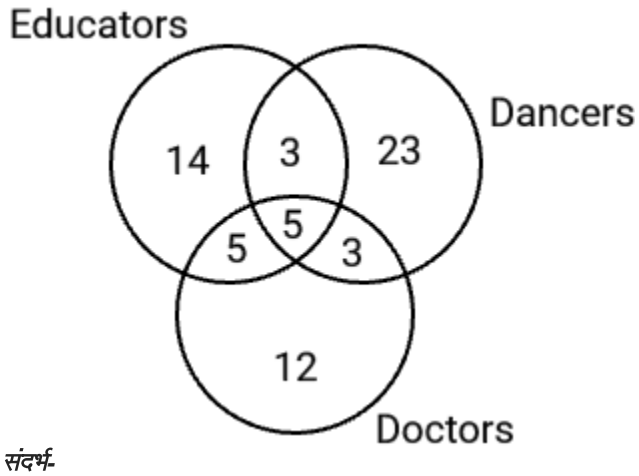

संदर्भ-
Educators- शिक्षक
Dancers- नर्तक
Doctors- डॉक्टर

नर्तकों की कुल संख्या कितनी है?

Ans
✗ 1. 23
✗ 2. 11
✗ 3. 26
✓ 4. 34

Question ID : **441009841692**
Option 1 ID : **4410093319836**
Option 2 ID : **4410093319838**
Option 3 ID : **4410093319839**
Option 4 ID : **4410093319837**

Q. दी गई शृंखला में प्रश्न-चिह्न (?) के स्थान पर क्या आना चाहिए?
20

59, 65.3, 71.6, 77.9, 84.2, ?

Ans
✗ 1. 95.3
✗ 2. 87.9
✓ 3. 90.5
✗ 4. 94.6

Question ID : **441009844585**
Option 1 ID : **4410093331206**
Option 2 ID : **4410093331207**
Option 3 ID : **4410093331205**
Option 4 ID : **4410093331204**

Section : **General Awareness**

Q. अकबर के शासनकाल में, दीवान-ए-कुल, साम्राज्य में निम्नलिखित में से किसके प्रति उत्तरदायी होता था?
1

Ans

✗ 1. धार्मिक अनुदान

✓ 2. राजस्व एवं वित्त

✗ 3. सैन्य संगठन

✗ 4. मुगल सम्राट और शाही परिवार की सुरक्षा

Question ID : **441009868318**
Option 1 ID : **4410093426305**
Option 2 ID : **4410093426303**
Option 3 ID : **4410093426304**
Option 4 ID : **4410093426306**

Q. जुलाई 2025 में जारी नीति (NITI) आयोग के 2023-24 संस्करण में कौन-सा राज्य 'अच्छे स्वास्थ्य और कल्याण' (SDG 3) सूचकांक में शीर्ष पर रहा?
2

Ans

✗ 1. केरल

✗ 2. महाराष्ट्र

✓ 3. गुजरात

✗ 4. उत्तराखंड

Question ID : **441009688795**
Option 1 ID : **4410092709206**
Option 2 ID : **4410092709207**
Option 3 ID : **4410092709209**
Option 4 ID : **4410092709208**

Q. केंद्रीय मंत्रिपरिषद के सदस्य को अनिवार्यतः _____ का सदस्य होना चाहिए।
3

Ans

✗ 1. राज्य विधान सभा

✗ 2. राज्य विधान परिषद

✗ 3. लोक लेखा समिति

✓ 4. संसद के किसी भी सदन

Question ID : **441009870668**
Option 1 ID : **4410093435624**
Option 2 ID : **4410093435625**
Option 3 ID : **4410093435626**
Option 4 ID : **4410093435627**

QuickSarkari.com | WhatsApp Channel | Telegram: t.me/quick_sarkari

Q. The ability of women to actively participate in economic and political life is measured by _____.

Ans
- ✔ 1. GEM
- ✘ 2. GDI
- ✘ 3. CPM
- ✘ 4. HDI

Question ID : **441009867243**
Option 1 ID : **4410093422006**
Option 2 ID : **4410093422004**
Option 3 ID : **4410093422005**
Option 4 ID : **4410093422003**

Q. The Cabinet mission came to India in 1946 with the aim of deliberations with Indian leaders on the issue of _____.

Ans
- ✔ 1. transferring power to Indians
- ✘ 2. liberating India
- ✘ 3. separating India and Pakistan
- ✘ 4. announcing Independence

Question ID : **441009868274**
Option 1 ID : **4410093426128**
Option 2 ID : **4410093426127**
Option 3 ID : **4410093426129**
Option 4 ID : **4410093426130**

Q. गणतंत्र दिवस, भारत के संविधान के लिए क्यों महत्वपूर्ण है?

Ans
- ✘ 1. इस पर हस्ताक्षर इसी दिन हुए थे।
- ✘ 2. इसका अनुवाद इसी दिन हुआ था।
- ✘ 3. इस पर पहली बार बहस इसी दिन हुई थी।
- ✔ 4. इसे इसी दिन अपनाया गया था।

Question ID : **441009232690**
Option 1 ID : **441009909193**
Option 2 ID : **441009909194**
Option 3 ID : **441009909192**
Option 4 ID : **441009909191**

Q. नागरिकता के अधिकार को कानून द्वारा विनियमित करने की शक्ति किसके पास है?
7

Ans
✗ 1. राज्य विधानमंडल
✓ 2. संसद
✗ 3. न्यायपालिका
✗ 4. कार्यपालिका

Question ID : **441009870640**
Option 1 ID : **4410093435512**
Option 2 ID : **4410093435513**
Option 3 ID : **4410093435515**
Option 4 ID : **4410093435514**

Q. निम्नलिखित में से किस वर्ष ग्रामीण भारत के विकास के लिए, भारत निर्माण कार्यक्रम शुरू किया गया था?
8

Ans
✗ 1. 2006
✗ 2. 2007
✗ 3. 1995
✓ 4. 2005

Question ID : **44100981960**
Option 1 ID : **441009325454**
Option 2 ID : **441009325455**
Option 3 ID : **441009325456**
Option 4 ID : **441009325453**

Q. भारतीय संविधान का कौन-सा अनुच्छेद भारत के सर्वोच्च न्यायालय में 'तदर्थ न्यायाधीशों की नियुक्ति' से संबंधित है?
9

Ans
✗ 1. अनुच्छेद 123
✓ 2. अनुच्छेद 127
✗ 3. अनुच्छेद 125
✗ 4. अनुच्छेद 128

Question ID : **441009870632**
Option 1 ID : **4410093435480**
Option 2 ID : **4410093435481**
Option 3 ID : **4410093435482**
Option 4 ID : **4410093435483**

Q. दिल्ली सल्तनत के निम्न सुल्तानों को सही कालानुक्रमिक क्रम में व्यवस्थित कीजिए।
10

a. रजिया सुल्तान
b. कुतुबुद्दीन ऐबक
c. गयासुद्दीन बलबन
d. इल्तुतमिश

Ans
✗ 1. d, a, c, b
✗ 2. c, d, b, a
✓ 3. b, d, a, c
✗ 4. b, d, c, a

Question ID : **441009868324**
Option 1 ID : **4410093426328**
Option 2 ID : **4410093426330**
Option 3 ID : **4410093426327**
Option 4 ID : **4410093426329**

Q. अरुणाचली मोनपा (Arunachali Monpas) द्वारा वसंत के आगमन और चंद्र कैलेंडर के पहले दिन को
11 चिह्नित करने के लिए कौन-सा उत्सव मनाया जाता है?

Ans
✗ 1. लोसूंग (Losoong)
✓ 2. लोसर (Losar)
✗ 3. सागा दावा (Saga Dawa)
✗ 4. न्योकुम (Nyokum)

Question ID : **441009363353**
Option 1 ID : **4410091419667**
Option 2 ID : **4410091419666**
Option 3 ID : **4410091419668**
Option 4 ID : **4410091419669**

Q. अंतर्राष्ट्रीय श्रम संगठन (ILO) के सांख्यिकी विभाग द्वारा श्रम बाजार के प्रमुख संकेतक (KILM) का पहला
12 संस्करण किस वर्ष जारी किया गया था?

Ans
✗ 1. 1995
✗ 2. 2010
✗ 3. 2005
✓ 4. 1999

Question ID : **441009363426**
Option 1 ID : **4410091419961**
Option 2 ID : **4410091419960**
Option 3 ID : **4410091419958**
Option 4 ID : **4410091419959**

Q. मार्च 2024 में केंद्रीय स्वास्थ्य मंत्री द्वारा पीएम भारतीय जन औषधि केंद्रों की स्थापना और विस्तार में लघु-
13 स्तरीय उद्यमियों को सहायता प्रदान करने के लिए कौन-सा कार्यक्रम शुरू किया गया?

Ans
✔ 1. ऋण सहायता कार्यक्रम (Credit Assistance Program)

✘ 2. मेक इन इंडिया कार्यक्रम (Make in India Programme)

✘ 3. पीएम धन्वंतरि योजना (PM Dhanvantari Scheme)

✘ 4. स्टार्टअप इंडिया पहल (Startup India Initiative)

Question ID : **441009704807**
Option 1 ID : **4410092773260**
Option 2 ID : **4410092773261**
Option 3 ID : **4410092773259**
Option 4 ID : **4410092773258**

Q. निम्नलिखित को सुमेलित कीजिए।
14

नदियां	सहायक नदियां
1) सिंधु	a. यमुना
2) गंगा	b. झेलम
3) गोदावरी	c. मांजरा

Ans
✔ 1. 1-b, 2-a, 3-c

✘ 2. 1-c, 2-b, 3-a

✘ 3. 1-c, 2-a, 3-b

✘ 4. 1-a, 2-b, 3-c

Question ID : **441009867039**
Option 1 ID : **4410093421190**
Option 2 ID : **4410093421191**
Option 3 ID : **4410093421189**
Option 4 ID : **4410093421188**

Q. Where are the headquarters of the Office of the Registrar General and
15 Census Commissioner, India, located?

Ans
✘ 1. Kolkata

✔ 2. New Delhi

✘ 3. Jaipur

✘ 4. Pune

Question ID : **441009867014**
Option 1 ID : **4410093421090**
Option 2 ID : **4410093421088**
Option 3 ID : **4410093421089**
Option 4 ID : **4410093421091**

Q. Individuals with the blood group ABO are an example of which of the following?
16

Ans

✗ 1. Recessive dominance

✓ 2. Codominance

✗ 3. Dominance

✗ 4. Incomplete dominance

Question ID : **441009891522**
Option 1 ID : **4410093520071**
Option 2 ID : **4410093520069**
Option 3 ID : **4410093520068**
Option 4 ID : **4410093520070**

Q. पौधों में उनकी जड़ों से अन्य अंगों तक जल और खनिज लवणों के परिवहन हेतु कौन-सा पादप ऊतक उत्तरदायी होता है?
17

Ans

✗ 1. फ्लोएम

✗ 2. मीजेन्काइमल ऊतक

✗ 3. कैम्बियम

✓ 4. जाइलम

Question ID : **441009891511**
Option 1 ID : **4410093520025**
Option 2 ID : **4410093520026**
Option 3 ID : **4410093520027**
Option 4 ID : **4410093520024**

Q. संविधान के निम्नलिखित में से कौन-से अनुच्छेद, आठवीं अनुसूची से संबंधित हैं?
18

Ans

✗ 1. अनुच्छेद 352 और 356

✗ 2. अनुच्छेद 348 और 350

✓ 3. अनुच्छेद 344(1) और 351

✗ 4. अनुच्छेद 343 और 345

Question ID : **441009232677**
Option 1 ID : **441009909142**
Option 2 ID : **441009909141**
Option 3 ID : **441009909140**
Option 4 ID : **441009909139**

Q. तापी नदी निम्नलिखित में से किस नदी के समानांतर बहती है?
19

Ans
✗ 1. गोदावरी
✗ 2. सिंधु
✓ 3. नर्मदा
✗ 4. ब्रह्मपुत्र

Question ID : **441009867017**
Option 1 ID : **4410093421103**
Option 2 ID : **4410093421100**
Option 3 ID : **4410093421102**
Option 4 ID : **4410093421101**

Q. फरवरी 2024 में, राजकोट में जैक क्रॉली को आउट करने के बाद टेस्ट मैचों में 500 विकेट लेने वाला
20 दूसरा भारतीय क्रिकेटर कौन बना?

Ans
✗ 1. मोहम्मद शमी
✓ 2. रविचंद्रन अश्विन
✗ 3. जसप्रीत बुमराह
✗ 4. रवींद्र जडेजा

Question ID : **441009704818**
Option 1 ID : **4410092773303**
Option 2 ID : **4410092773302**
Option 3 ID : **4410092773305**
Option 4 ID : **4410092773304**

Section : **Numerical Aptitude and Data Interpretation**

Q. 1 यदि $\frac{a}{b} = \frac{4}{3}$ है, तो $\frac{[a^2 + b^2]}{[a^2 - b^2]}$ का मान ज्ञात किजिए।

Ans
✗ 1. $\frac{22}{3}$
✓ 2. $\frac{25}{7}$
✗ 3. $\frac{22}{4}$
✗ 4. $\frac{25}{8}$

Question ID : **441009836451**
Option 1 ID : **4410093298920**
Option 2 ID : **4410093298921**
Option 3 ID : **4410093298923**
Option 4 ID : **4410093298922**

Q. कोई धनराशि साधारण ब्याज की किस वार्षिक दर (प्रतिशत में) से 10 वर्षों में स्वयं की दोगुनी हो जाएगी?
2

Ans
✗ 1. 9

✗ 2. 19

✓ 3. 10

✗ 4. 20

Question ID : **441009836120**
Option 1 ID : **4410093297598**
Option 2 ID : **4410093297599**
Option 3 ID : **4410093297596**
Option 4 ID : **4410093297597**

Q. ग्राफ का ध्यानपूर्वक अध्ययन कीजिए और नीचे दिए गए प्रश्न का उत्तर दीजिए।
3

निम्नांकित रेखा ग्राफ, एक वर्ष के पहले छह महीनों के दौरान मोहन की आय और व्यय (₹, सैकड़े में) को दर्शाता है।

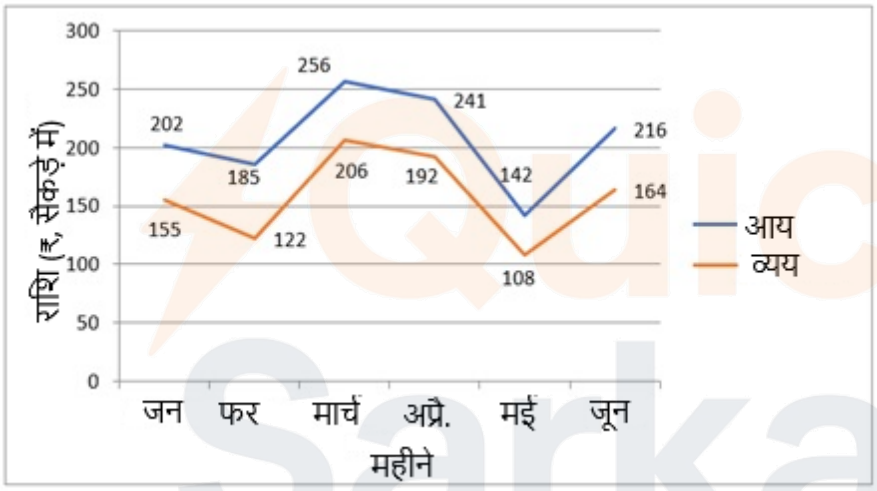

किस महीने में मोहन की बचत अधिकतम थी?

Ans
✗ 1. अप्रैल

✗ 2. मार्च

✓ 3. फरवरी

✗ 4. जून

Question ID : **441009836314**
Option 1 ID : **4410093298372**
Option 2 ID : **4410093298375**
Option 3 ID : **4410093298373**
Option 4 ID : **4410093298374**

QuickSarkari.com | WhatsApp Channel | Telegram: t.me/quick_sarkari

Q. 4 राम एक काम 25 दिनों में पूरा कर सकता है और योगी उसी काम को 35 दिनों में पूरा करता है। वे काम करना शुरू करते हैं और कुछ दिनों तक एकसाथ काम करते हैं और फिर राम काम छोड़ देता है। शेष काम योगी 23 दिनों में पूरा करता है। उन्होंने साथ मिलकर कितने दिन काम किया था?

Ans
- ✗ 1. 8 दिन
- ✓ 2. 5 दिन
- ✗ 3. 6 दिन
- ✗ 4. 9 दिन

Question ID : **441009836268**
Option 1 ID : **4410093298189**
Option 2 ID : **4410093298190**
Option 3 ID : **4410093298188**
Option 4 ID : **4410093298191**

Q. 5 एक आदमी ने दो किस्म के अमरूद खरीदे, एक ₹6 में 7 अमरूद की दर से और दूसरे ₹6 प्रति अमरूद की दर से। उसने प्रत्येक किस्म के बराबर अमरूद खरीदे और सभी अमरूद ₹6 प्रति अमरूद की दर से बेच दिए। उसका लाभ प्रतिशत ज्ञात कीजिए।

Ans
- ✓ 1. 75%
- ✗ 2. 80%
- ✗ 3. 72%
- ✗ 4. 76%

Question ID : **441009835783**
Option 1 ID : **4410093296248**
Option 2 ID : **4410093296250**
Option 3 ID : **4410093296249**
Option 4 ID : **4410093296251**

Q. 6 A और B दोनों 200 m की रेस में भाग लेते हैं। A, 8 km/hr की चाल से दौड़ता है। A, B को 8 m की बढ़त देता है और फिर भी उसे 6 सेकंड से हरा देता है। B की चाल ज्ञात कीजिए।

Ans
- ✗ 1. 7.68 km/hr
- ✗ 2. 7.5 km/hr
- ✗ 3. 8.2 km/hr
- ✓ 4. 7.2 km/hr

Question ID : **441009836331**
Option 1 ID : **4410093298441**
Option 2 ID : **4410093298443**
Option 3 ID : **4410093298442**
Option 4 ID : **4410093298440**

Q. 7 एक मेज का अंकित मूल्य ₹2,360 है। यदि इसे 25% की छूट पर बेचा जाए, तो मेज का विक्रय मूल्य कितना होगा?

Ans
✗ 1. ₹1,790
✗ 2. ₹1,785
✗ 3. ₹1,775
✓ 4. ₹1,770

Question ID : **441009836401**
Option 1 ID : **4410093298722**
Option 2 ID : **4410093298720**
Option 3 ID : **4410093298723**
Option 4 ID : **4410093298721**

Q. 8 रमेश, रिया और सिया एक काम को अलग-अलग क्रमशः 12, 18 और 24 दिनों में पूरा कर सकते हैं। उन्होंने साथ मिलकर काम शुरू किया, लेकिन रिया ने काम पूरा होने से 4 दिन पहले काम करना बंद कर दिया, और सिया ने काम पूरा होने से 6 दिन पहले काम करना बंद कर दिया। काम पूरा होने में कितना समय लगेगा?

Ans
✓ 1. $8\frac{2}{3}$ दिन
✗ 2. $9\frac{1}{3}$ दिन
✗ 3. $8\frac{1}{3}$ दिन
✗ 4. $9\frac{2}{3}$ दिन

Question ID : **441009836246**
Option 1 ID : **4410093298103**
Option 2 ID : **4410093298101**
Option 3 ID : **4410093298102**
Option 4 ID : **4410093298100**

Q. 9 13 संख्याओं का औसत 8 है। यदि प्रत्येक संख्या को 6 से गुणा कर दिया जाए, तो नया औसत क्या होगा?

Ans
✗ 1. 13
✗ 2. 6
✓ 3. 48
✗ 4. 8

Question ID : **441009836159**
Option 1 ID : **4410093297755**
Option 2 ID : **4410093297754**
Option 3 ID : **4410093297752**
Option 4 ID : **4410093297753**

QuickSarkari.com | WhatsApp Channel | Telegram: t.me/quick_sarkari

Q. तीन घंटियाँ क्रमशः 24 सेकंड, 60 सेकंड और 72 सेकंड के अंतराल पर बजती हैं। यदि तीनों घंटियाँ 10:00 a.m. पर एक साथ बजती हैं, तो वे अगली बार एक साथ कब बजेंगी?

10

Ans

✗ 1. 10:05 a.m.

✗ 2. 10:04 a.m.

✗ 3. 10:07 a.m.

✓ 4. 10:06 a.m.

Question ID : **441009836469**
Option 1 ID : **4410093298993**
Option 2 ID : **4410093298992**
Option 3 ID : **4410093298995**
Option 4 ID : **4410093298994**

Q. किसी धनराशि को एक निश्चित वार्षिक चक्रवृद्धि ब्याज दर पर निवेश करने से वह 1 वर्ष में ₹12,500 और 2 वर्षों में ₹13,500 हो जाती है। वार्षिक ब्याज दर ज्ञात कीजिए।

11

Ans

✓ 1. 8%

✗ 2. 9%

✗ 3. 7%

✗ 4. 10%

Question ID : **441009836419**
Option 1 ID : **4410093298793**
Option 2 ID : **4410093298794**
Option 3 ID : **4410093298792**
Option 4 ID : **4410093298795**

Q. दूधवाले से खरीदे गए मिश्रण में दूध और पानी का अनुपात 2 : 1 है। यदि दूधवाले से खरीदे गए 12 लीटर मिश्रण में 3 लीटर पानी मिला दिया जाए, तो नए मिश्रण में पानी का प्रतिशत कितना होगा? (दो दशमलव स्थानों तक पूर्णांकित)

12

Ans

✗ 1. 53.33%

✗ 2. 41.67%

✓ 3. 46.67%

✗ 4. 64.67%

Question ID : **441009836352**
Option 1 ID : **4410093298527**
Option 2 ID : **4410093298525**
Option 3 ID : **4410093298524**
Option 4 ID : **4410093298526**

Q. 13 एक त्रिभुजाकार प्रिज्म का आयतन 2112 cm^3 है। यदि प्रिज्म के आधार की लंबाई 12 cm है और इसका आधार बनाने वाले त्रिभुज की संगत ऊँचाई 16 cm है, तो प्रिज्म की संगत ऊँचाई ज्ञात कीजिए।

Ans
✔ 1. 22 cm
✘ 2. 20 cm
✘ 3. 23 cm
✘ 4. 21 cm

Question ID : **441009836734**
Option 1 ID : **4410093300054**
Option 2 ID : **4410093300052**
Option 3 ID : **4410093300055**
Option 4 ID : **4410093300053**

Q. 14 90 km/hr की चाल से गतिमान एक रेलगाड़ी प्लेटफार्म पर लगे एक खंभे को 20 सेकंड में पार करती है। रेलगाड़ी की लंबाई (m में) ज्ञात कीजिए।

Ans
✘ 1. 494
✘ 2. 472
✔ 3. 500
✘ 4. 480

Question ID : **441009835518**
Option 1 ID : **4410093295189**
Option 2 ID : **4410093295191**
Option 3 ID : **4410093295188**
Option 4 ID : **4410093295190**

Q. 15 रमेश नामक एक सब्ज़ी विक्रेता 18% लाभ पर टमाटर बेचता है। बिक्री के दौरान वह गलत बाट का भी उपयोग करता है, जो वास्तविक वज़न से 12% कम है। उसका कुल लाभ प्रतिशत (दशमलव के 2 अंकों तक पूर्णांकित) कितना होगा?

Ans
✘ 1. 39.48%
✘ 2. 28.12%
✘ 3. 46.32%
✔ 4. 34.09%

Question ID : **441009836227**
Option 1 ID : **4410093298026**
Option 2 ID : **4410093298024**
Option 3 ID : **4410093298027**
Option 4 ID : **4410093298025**

QuickSarkari.com | WhatsApp Channel | Telegram: t.me/quick_sarkari

Q. महासागरीय सतह का तापमान 15°C है। महासागर की सतह से 1500 मीटर नीचे, तापमान 5°C है। यदि प्रति मीटर गहराई बढ़ने पर, तापमान एक स्थिर दर से घटता है, तो महासागर में प्रति 150 मीटर की गहराई में तापमान में कितनी कमी (°C में) आएगी?
16

Ans
✔ 1. 1
✘ 2. 3
✘ 3. 4
✘ 4. 2

Question ID : **441009836440**
Option 1 ID : **4410093298876**
Option 2 ID : **4410093298878**
Option 3 ID : **4410093298879**
Option 4 ID : **4410093298877**

Q. एक ठोस बेलनाकार लकड़ी के गुटके के आधार की त्रिज्या 12 cm और ऊँचाई 16 cm है। बेलनाकार गुटके की समान आधार त्रिज्या और समान ऊँचाई वाला एक शंक्वाकार गुहा काटा गया है। शेष ठोस का सम्पूर्ण पृष्ठीय क्षेत्रफल (cm^2 में) ज्ञात कीजिए। [π = 3.14 लीजिए]
17

Ans
✘ 1. 2011.42
✘ 2. 2311.25
✔ 3. 2411.52
✘ 4. 2410.52

Question ID : **441009836758**
Option 1 ID : **4410093300150**
Option 2 ID : **4410093300148**
Option 3 ID : **4410093300149**
Option 4 ID : **4410093300151**

Q. 13 संख्याओं का औसत 7 है। यदि प्रत्येक संख्या को 8 से गुणा कर दिया जाए, तो नया औसत क्या होगा?
18

Ans
✘ 1. 7
✔ 2. 56
✘ 3. 13
✘ 4. 8

Question ID : **441009836195**
Option 1 ID : **4410093297897**
Option 2 ID : **4410093297896**
Option 3 ID : **4410093297899**
Option 4 ID : **4410093297898**

QuickSarkari.com | WhatsApp Channel | Telegram: t.me/quick_sarkari

Q. गेहूँ की कीमत में 16.8% की वृद्धि हुई। एक गृहिणी को अपनी खपत में कितने प्रतिशत (दशमलव के बाद 1 अंक तक पूर्णांकित) की कमी करनी चाहिए, ताकि गेहूँ पर उसके खर्च में वृद्धि न हो?
19

Ans
- ✗ 1. 13.5%
- ✓ 2. 14.4%
- ✗ 3. 15.4%
- ✗ 4. 10.5%

Question ID : **441009836237**
Option 1 ID : **4410093298064**
Option 2 ID : **4410093298067**
Option 3 ID : **4410093298066**
Option 4 ID : **4410093298065**

Q. 48 आदमी एक गड्ढा 14 दिन में खोद सकते हैं। 28 आदमी समान आकार का गड्ढा कितने दिन में खोद पाएंगे?
20

Ans
- ✓ 1. 24
- ✗ 2. 10
- ✗ 3. 48
- ✗ 4. 12

Question ID : **441009836310**
Option 1 ID : **4410093298359**
Option 2 ID : **4410093298356**
Option 3 ID : **4410093298357**
Option 4 ID : **4410093298358**

Section : **English Language and Comprehension**

QuickSarkari.com | WhatsApp Channel | Telegram: t.me/quick_sarkari

Q. 1 Sentences of a paragraph are given below in jumbled order. Arrange the sentences in the correct order to form a meaningful and coherent paragraph.

A. This is facilitated by the fact that humans are not the natural prey of any venomous snake.
B. Cobras are recognised by the hoods that they flare when angry or disturbed; the hoods are created by the extension of the ribs behind the cobras' heads.
C. We are a bit large for them to swallow whole, and they have no means of chopping us up into bite-size pieces.
D. The Indian cobra is the common name for members of the family of venomous snakes, known for their intimidating looks and deadly bite.
E. Obviously the best prevention is to avoid getting bitten.

Ans
✗ 1. BCADE
✗ 2. EADCB
✓ 3. DBEAC
✗ 4. ADCBE

Question ID : **441009837868**
Option 1 ID : **4410093304564**
Option 2 ID : **4410093304567**
Option 3 ID : **4410093304565**
Option 4 ID : **4410093304566**

Q. 2 Select the most appropriate option to fill in the blank.

He decided to study biology, _____ he had always been fascinated by living organisms.

Ans
✗ 1. but
✗ 2. so
✓ 3. for
✗ 4. nor

Question ID : **44100973397**
Option 1 ID : **441009291891**
Option 2 ID : **441009291893**
Option 3 ID : **441009291890**
Option 4 ID : **441009291892**

QuickSarkari.com | WhatsApp Channel | Telegram: t.me/quick_sarkari

Q. 3 Identify the INCORRECTLY spelt word in the given sentence.

The lackadaisical attitude of the team kept them stuck in the doldrums, while their competitors, driven and energetic, thrived in the ubiquitious excitement of the boisterous crowd.

Ans
✗ 1. doldrums

✓ 2. ubiquitious

✗ 3. boisterous

✗ 4. lackadaisical

Question ID : **4410096420**
Option 1 ID : **44100925432**
Option 2 ID : **44100925433**
Option 3 ID : **44100925434**
Option 4 ID : **44100925431**

Q. 4 Select the most appropriate synonym of the underlined word to fill in the blank.

Savant: His writing style is <u>florid</u>, full of embellished language.
Hemant: Yes, it is something more _____.

Ans
✗ 1. unadorned

✗ 2. ingenuous

✗ 3. austere

✓ 4. ornate

Question ID : **44100989790**
Option 1 ID : **441009357329**
Option 2 ID : **441009357332**
Option 3 ID : **441009357330**
Option 4 ID : **441009357331**

Q. 5 Select the most appropriate idiom that can substitute the underlined segment in the given sentence.

Don't be in a hurry to respond to that rude email from your boss, <u>do not take action without thinking about it first</u>.

Ans
✗ 1. cold shoulder

✗ 2. nurse a grudge

✗ 3. turn tables

✓ 4. hold your horses

Question ID : **441009845678**
Option 1 ID : **4410093335586**
Option 2 ID : **4410093335584**
Option 3 ID : **4410093335587**
Option 4 ID : **4410093335585**

QuickSarkari.com | WhatsApp Channel | Telegram: t.me/quick_sarkari

Q. 6 Select the option that can be used as a one-word substitute for the underlined group of words/phrase in the given sentence.

In spite of his age, he has a lot of <u>energy and enthusiasm for life</u>.

Ans
✔ 1. vim and vigour

✘ 2. flashes in the pan

✘ 3. done deals

✘ 4. raw deals

Question ID : **441009845708**
Option 1 ID : **4410093335707**
Option 2 ID : **4410093335705**
Option 3 ID : **4410093335704**
Option 4 ID : **4410093335706**

Q. 7 Select the option that can be used as a one-word substitute for the underlined segment in the given passage.

History is rife with examples of individuals who, for various reasons, chose to betray their own people and collaborate with an enemy. Such a person is often branded a(an) <u>traitor who collaborates with an occupying enemy force</u>. Whether driven by personal ambition, a warped sense of ideology or sheer cowardice in the face of adversity, they become a symbol of ultimate betrayal, forever marked by their willingness to side with the oppressor against their own nation.

Ans
✘ 1. bigot

✘ 2. anarchist

✔ 3. quisling

✘ 4. cynosure

Question ID : **44100985956**
Option 1 ID : **441009341536**
Option 2 ID : **441009341534**
Option 3 ID : **441009341535**
Option 4 ID : **441009341537**

Q. 8 Rectify the sentence by selecting the correct spelling of the highlighted word from the given options.

The shrewd team members took percautionary measures before starting the experiment.

Ans
✘ 1. precausionary

✔ 2. precautionary

✘ 3. precausionery

✘ 4. precautionery

Question ID : **4410098677**
Option 1 ID : **44100934472**
Option 2 ID : **44100934474**
Option 3 ID : **44100934473**
Option 4 ID : **44100934475**

QuickSarkari.com | WhatsApp Channel | Telegram: t.me/quick_sarkari

Q. 9 Select the most appropriate synonym of the underlined word to fill in the blank.
Savant: The teacher's clarification was <u>lucid</u> and easy to grasp.
Hemant: Yes, I thought it was also _____ and easy to digest.

Ans
✗ 1. ambiguous
✗ 2. enigmatic
✗ 3. obstruse
✓ 4. distinct

Question ID : **44100989788**
Option 1 ID : **441009357321**
Option 2 ID : **441009357324**
Option 3 ID : **441009357323**
Option 4 ID : **441009357322**

Q. 10 Select the most appropriate option to fill in the blank.
If they _____ the technology earlier, their growth trajectory would have been different.

Ans
✗ 1. adopting
✓ 2. had adopted
✗ 3. adopts
✗ 4. adopt

Question ID : **44100973408**
Option 1 ID : **441009291935**
Option 2 ID : **441009291936**
Option 3 ID : **441009291937**
Option 4 ID : **441009291934**

Q. 11 Sentences of a paragraph are given below in jumbled order. Arrange the sentences in the correct order to form a meaningful and coherent paragraph.

A. Although this physical reaction will help us function more effectively when we are under pressure for short periods of time, it can be extremely damaging to the body in terms of long-term effects.
B. These hormones produce marked changes in heart rate, blood pressure levels, metabolism and physical activity.
C. When the human body is placed under physical or psychological stress, it increases the production of certain hormones, such as adrenaline and cortisol.
D. Examples of physiological effects are slowing down of the digestive system, increased heart rate and constriction of blood vessels.

Ans
✓ 1. CBAD
✗ 2. DBCA
✗ 3. ADCB
✗ 4. BDAC

Question ID : **441009837869**
Option 1 ID : **4410093304570**
Option 2 ID : **4410093304571**
Option 3 ID : **4410093304569**
Option 4 ID : **4410093304568**

Q. Select the most appropriate question tag to fill in the blank.
12
They are planning to visit Kashmir, _____?

Ans
✗ 1. won't they
✗ 2. don't they
✓ 3. aren't they
✗ 4. do they

Question ID : **44100974284**
Option 1 ID : **441009295341**
Option 2 ID : **441009295340**
Option 3 ID : **441009295339**
Option 4 ID : **441009295338**

Q. Select the option that can be used as a one-word substitute for the given
13 group of words.

A government run by the wealthy

Ans
✗ 1. Aristocracy
✓ 2. Plutocracy
✗ 3. Oligarchy
✗ 4. Bureaucracy

Question ID : **44100981077**
Option 1 ID : **441009321970**
Option 2 ID : **441009321971**
Option 3 ID : **441009321972**
Option 4 ID : **441009321973**

Q. Select the most appropriate option to fill in the blank.
14
The novel was _____ written, capturing the complex emotions of its characters.

Ans
✗ 1. most beautiful
✗ 2. more beautiful
✗ 3. beautiful
✓ 4. beautifully

Question ID : **44100973373**
Option 1 ID : **441009291798**
Option 2 ID : **441009291797**
Option 3 ID : **441009291796**
Option 4 ID : **441009291795**

Q. Select the most appropriate question tag to fill in the blank.
15
Under no circumstances should you divulge confidential information, _____?

Ans

✗ 1. would you

✓ 2. should you

✗ 3. did you

✗ 4. are you

Question ID : **44100977649**
Option 1 ID : **441009308550**
Option 2 ID : **441009308548**
Option 3 ID : **441009308551**
Option 4 ID : **441009308549**

QuickSarkari

Comprehension:

Read the given passage and answer the questions that follow.

American literature has undergone a profound transformation from its early colonial roots to its present-day complexity. The initial literary works, often theological in nature, reflected the Puritan settlers' rigid worldview, emphasising moral rectitude and divine providence. Writers such as Jonathan Edwards and Anne Bradstreet used their prose and poetry to navigate religious devotion and personal introspection. However, as the colonies moved towards independence, literature took on a more political tone, with figures like Thomas Paine and Benjamin Franklin using rhetorical finesse to galvanise revolutionary sentiment.

The 19th century marked a period of literary expansion, as American authors sought to carve a distinct identity apart from European influences. Romanticism flourished with writers like Nathaniel Hawthorne and Edgar Allan Poe, whose works explored psychological depth, human fallibility and gothic sensibilities. Simultaneously, transcendentalists such as Ralph Waldo Emerson and Henry David Thoreau championed individualism and nature's spiritual significance. By the latter half of the century, realism emerged as a counterpoint to romantic idealism, with Mark Twain and Henry James depicting life's intricacies through meticulous detail and social critique.

The 20th century saw American literature fracture into numerous stylistic and thematic branches. Modernist writers like TS Eliot and William Faulkner experimented with fragmented narratives and stream-of-consciousness techniques, reflecting the disillusionment of a rapidly changing world. The Harlem Renaissance brought forth voices such as Langston Hughes, who redefined African American identity in literature. In the postmodern era, figures like Thomas Pynchon and Don DeLillo interrogated the nature of truth, media and technological encroachment on human experience.

American literature continues to evolve, encapsulating diverse perspectives and experimental forms. It serves not only as a reflection of historical and cultural shifts but also as an ever-adapting narrative of the American consciousness.

SubQuestion No : 16

Q. 16 Which of the following best describes the structure of the passage?

Ans

✔ 1. It presents a chronological progression of American literature.

✘ 2. It critiques the impact of technological advancements on literature.

✘ 3. It focuses on modern American literary movements.

✘ 4. It contrasts American and European literature in various periods.

Question ID : **44100989220**
Option 1 ID : **441009355023**
Option 2 ID : **441009355026**
Option 3 ID : **441009355025**
Option 4 ID : **441009355024**

QuickSarkari.com | WhatsApp Channel | Telegram: t.me/quick_sarkari

Comprehension:

Read the given passage and answer the questions that follow.

American literature has undergone a profound transformation from its early colonial roots to its present-day complexity. The initial literary works, often theological in nature, reflected the Puritan settlers' rigid worldview, emphasising moral rectitude and divine providence. Writers such as Jonathan Edwards and Anne Bradstreet used their prose and poetry to navigate religious devotion and personal introspection. However, as the colonies moved towards independence, literature took on a more political tone, with figures like Thomas Paine and Benjamin Franklin using rhetorical finesse to galvanise revolutionary sentiment.

The 19th century marked a period of literary expansion, as American authors sought to carve a distinct identity apart from European influences. Romanticism flourished with writers like Nathaniel Hawthorne and Edgar Allan Poe, whose works explored psychological depth, human fallibility and gothic sensibilities. Simultaneously, transcendentalists such as Ralph Waldo Emerson and Henry David Thoreau championed individualism and nature's spiritual significance. By the latter half of the century, realism emerged as a counterpoint to romantic idealism, with Mark Twain and Henry James depicting life's intricacies through meticulous detail and social critique.

The 20th century saw American literature fracture into numerous stylistic and thematic branches. Modernist writers like TS Eliot and William Faulkner experimented with fragmented narratives and stream-of-consciousness techniques, reflecting the disillusionment of a rapidly changing world. The Harlem Renaissance brought forth voices such as Langston Hughes, who redefined African American identity in literature. In the postmodern era, figures like Thomas Pynchon and Don DeLillo interrogated the nature of truth, media and technological encroachment on human experience.

American literature continues to evolve, encapsulating diverse perspectives and experimental forms. It serves not only as a reflection of historical and cultural shifts but also as an ever-adapting narrative of the American consciousness.

SubQuestion No : 17

Q. 17 According to the passage, which of the following factors influenced American literature's shift towards a political tone?

Ans

✗ 1. The influence of transcendentalists such as Ralph Waldo Emerson

✓ 2. The movement towards American independence

✗ 3. The development of Harlem Renaissance

✗ 4. The expansion of literary realism and European influences

Question ID : **44100989219**
Option 1 ID : **441009355020**
Option 2 ID : **441009355021**
Option 3 ID : **441009355022**
Option 4 ID : **441009355019**

Comprehension:

Read the given passage and answer the questions that follow.

American literature has undergone a profound transformation from its early colonial roots to its present-day complexity. The initial literary works, often theological in nature, reflected the Puritan settlers' rigid worldview, emphasising moral rectitude and divine providence. Writers such as Jonathan Edwards and Anne Bradstreet used their prose and poetry to navigate religious devotion and personal introspection. However, as the colonies moved towards independence, literature took on a more political tone, with figures like Thomas Paine and Benjamin Franklin using rhetorical finesse to galvanise revolutionary sentiment.

The 19th century marked a period of literary expansion, as American authors sought to carve a distinct identity apart from European influences. Romanticism flourished with writers like Nathaniel Hawthorne and Edgar Allan Poe, whose works explored psychological depth, human fallibility and gothic sensibilities. Simultaneously, transcendentalists such as Ralph Waldo Emerson and Henry David Thoreau championed individualism and nature's spiritual significance. By the latter half of the century, realism emerged as a counterpoint to romantic idealism, with Mark Twain and Henry James depicting life's intricacies through meticulous detail and social critique.

The 20th century saw American literature fracture into numerous stylistic and thematic branches. Modernist writers like TS Eliot and William Faulkner experimented with fragmented narratives and stream-of-consciousness techniques, reflecting the disillusionment of a rapidly changing world. The Harlem Renaissance brought forth voices such as Langston Hughes, who redefined African American identity in literature. In the postmodern era, figures like Thomas Pynchon and Don DeLillo interrogated the nature of truth, media and technological encroachment on human experience.

American literature continues to evolve, encapsulating diverse perspectives and experimental forms. It serves not only as a reflection of historical and cultural shifts but also as an ever-adapting narrative of the American consciousness.

SubQuestion No : 18

Q. Select the most appropriate ANTONYM of the word 'rectitude' as used in the 18 passage.

Ans

✗ 1. Insouciance

✓ 2. Turpitude

✗ 3. Obfuscation

✗ 4. Opprobrium

Question ID : **44100989221**
Option 1 ID : **441009355029**
Option 2 ID : **441009355027**
Option 3 ID : **441009355028**
Option 4 ID : **441009355030**

Comprehension:

Read the given passage and answer the questions that follow.

American literature has undergone a profound transformation from its early colonial roots to its present-day complexity. The initial literary works, often theological in nature, reflected the Puritan settlers' rigid worldview, emphasising moral rectitude and divine providence. Writers such as Jonathan Edwards and Anne Bradstreet used their prose and poetry to navigate religious devotion and personal introspection. However, as the colonies moved towards independence, literature took on a more political tone, with figures like Thomas Paine and Benjamin Franklin using rhetorical finesse to galvanise revolutionary sentiment.

The 19th century marked a period of literary expansion, as American authors sought to carve a distinct identity apart from European influences. Romanticism flourished with writers like Nathaniel Hawthorne and Edgar Allan Poe, whose works explored psychological depth, human fallibility and gothic sensibilities. Simultaneously, transcendentalists such as Ralph Waldo Emerson and Henry David Thoreau championed individualism and nature's spiritual significance. By the latter half of the century, realism emerged as a counterpoint to romantic idealism, with Mark Twain and Henry James depicting life's intricacies through meticulous detail and social critique.

The 20th century saw American literature fracture into numerous stylistic and thematic branches. Modernist writers like TS Eliot and William Faulkner experimented with fragmented narratives and stream-of-consciousness techniques, reflecting the disillusionment of a rapidly changing world. The Harlem Renaissance brought forth voices such as Langston Hughes, who redefined African American identity in literature. In the postmodern era, figures like Thomas Pynchon and Don DeLillo interrogated the nature of truth, media and technological encroachment on human experience.

American literature continues to evolve, encapsulating diverse perspectives and experimental forms. It serves not only as a reflection of historical and cultural shifts but also as an ever-adapting narrative of the American consciousness.

SubQuestion No : 19

Q. 19 Based on the passage, which of the following can be inferred about postmodern American literature?

Ans

✗ 1. It rejects earlier literary movements and reinvents itself.

✓ 2. It challenges the reliability of established narratives.

✗ 3. It embraces a traditional narrative style.

✗ 4. It primarily focuses on political themes.

Question ID : **44100989218**
Option 1 ID : **441009355015**
Option 2 ID : **441009355017**
Option 3 ID : **441009355016**
Option 4 ID : **441009355018**

Comprehension:

Read the given passage and answer the questions that follow.

American literature has undergone a profound transformation from its early colonial roots to its present-day complexity. The initial literary works, often theological in nature, reflected the Puritan settlers' rigid worldview, emphasising moral rectitude and divine providence. Writers such as Jonathan Edwards and Anne Bradstreet used their prose and poetry to navigate religious devotion and personal introspection. However, as the colonies moved towards independence, literature took on a more political tone, with figures like Thomas Paine and Benjamin Franklin using rhetorical finesse to galvanise revolutionary sentiment.

The 19th century marked a period of literary expansion, as American authors sought to carve a distinct identity apart from European influences. Romanticism flourished with writers like Nathaniel Hawthorne and Edgar Allan Poe, whose works explored psychological depth, human fallibility and gothic sensibilities. Simultaneously, transcendentalists such as Ralph Waldo Emerson and Henry David Thoreau championed individualism and nature's spiritual significance. By the latter half of the century, realism emerged as a counterpoint to romantic idealism, with Mark Twain and Henry James depicting life's intricacies through meticulous detail and social critique.

The 20th century saw American literature fracture into numerous stylistic and thematic branches. Modernist writers like TS Eliot and William Faulkner experimented with fragmented narratives and stream-of-consciousness techniques, reflecting the disillusionment of a rapidly changing world. The Harlem Renaissance brought forth voices such as Langston Hughes, who redefined African American identity in literature. In the postmodern era, figures like Thomas Pynchon and Don DeLillo interrogated the nature of truth, media and technological encroachment on human experience.

American literature continues to evolve, encapsulating diverse perspectives and experimental forms. It serves not only as a reflection of historical and cultural shifts but also as an ever-adapting narrative of the American consciousness.

SubQuestion No : 20

Q. 20 Which of the following literary movements is identified in the passage as a reaction against Romanticism?

Ans

✗ 1. Transcendentalism

✗ 2. Gothic Fiction

✗ 3. Modernism

✓ 4. Realism

Question ID : **44100989217**
Option 1 ID : **441009355011**
Option 2 ID : **441009355013**
Option 3 ID : **441009355014**
Option 4 ID : **441009355012**

Section : **Hindi Language and Comprehension**

QuickSarkari.com | WhatsApp Channel | Telegram: t.me/quick_sarkari

Q. निम्नलिखित लोकोक्ति का सही अर्थ पहचानें।
1 न सावन सूखा न भादो हरा।

Ans
✗ 1. सावन के न आने पर पेड़ सुख जाते हैं।
✗ 2. बारिश से हरियाली हो जाती है।
✓ 3. सदैव एक सा बना रहना।
✗ 4. सावन के आने पर सूखा दूर हो जाता है।

Question ID : **441009844000**
Option 1 ID : **4410093328870**
Option 2 ID : **4410093328871**
Option 3 ID : **4410093328869**
Option 4 ID : **4410093328868**

Q. उचित कारक चिह्न से दिए गए वाक्य के रिक्त स्थान पूर्ण करें--
2
ज़ोहेब ने घर ____ अलमारी से समीर के लिए हाथ _____ चादर निकाली।

Ans
✓ 1. में, से
✗ 2. से, द्वारा
✗ 3. पर, में
✗ 4. के, से

Question ID : **441009837159**
Option 1 ID : **4410093301756**
Option 2 ID : **4410093301758**
Option 3 ID : **4410093301757**
Option 4 ID : **4410093301759**

Q. निम्नलिखित वाक्य को कारक द्वारा पूर्ण करें।
3 कहीं तुम दीपा ____ यह साड़ी तो नहीं ले रहीं।

Ans
✗ 1. को
✓ 2. के लिए
✗ 3. ने
✗ 4. पर

Question ID : **441009837148**
Option 1 ID : **4410093301714**
Option 2 ID : **4410093301712**
Option 3 ID : **4410093301713**
Option 4 ID : **4410093301715**

QuickSarkari.com | WhatsApp Channel | Telegram: t.me/quick_sarkari

Q. निम्नलिखित वाक्य में रेखांकित शब्द के स्थान पर कोई अन्य सही पर्यायवाची शब्द दिए गए विकल्पों में से 4 चुनिए-
<u>प्रायश्चित</u> से पाप खत्म नहीं होता।

Ans
✗ 1. धूम
✓ 2. पछतावा
✗ 3. पाप
✗ 4. निश्चित

Question ID : **441009843855**
Option 1 ID : **4410093328288**
Option 2 ID : **4410093328290**
Option 3 ID : **4410093328291**
Option 4 ID : **4410093328289**

Q. निम्नलिखित वाक्य को कारक द्वारा पूर्ण करें। 5 मैंने रवि ____खिचड़ी बनाई है।

Ans
✓ 1. हेतु
✗ 2. द्वारा
✗ 3. को
✗ 4. से

Question ID : **441009837154**
Option 1 ID : **4410093301736**
Option 2 ID : **4410093301739**
Option 3 ID : **4410093301737**
Option 4 ID : **4410093301738**

Q. निम्नलिखित वाक्यों को उचित क्रम में लिखें। 6
1 है वह ठीक हो गया है
2 जिस जिस व्यक्ति ने
3 का कोर्स पूरा किया
4 इस बीमारी की दवा

Ans
✗ 1. 3 1 4 2
✗ 2. 2 3 1 4
✗ 3. 1 4 2 3
✓ 4. 2 4 3 1

Question ID : **441009842040**
Option 1 ID : **4410093321229**
Option 2 ID : **4410093321230**
Option 3 ID : **4410093321231**
Option 4 ID : **4410093321228**

Q. निम्नलिखित मुहावरे का उचित अर्थ बताएं।
7 घोड़े बेचकर सोना।

Ans
✗ 1. आराम करना।
✗ 2. समय बर्बाद करना।
✓ 3. बेफिक्र होना।
✗ 4. सुख का अनुभव करना।

Question ID : **441009844005**
Option 1 ID : **4410093328890**
Option 2 ID : **4410093328889**
Option 3 ID : **4410093328888**
Option 4 ID : **4410093328891**

Q. 'पर्वत के नीचे की भूमि " वाक्यांश के लिए उपयुक्त शब्द होगा-
8

Ans
✗ 1. भूधर
✗ 2. अप्रमेय
✓ 3. उपत्यका
✗ 4. अधित्यका

Question ID : **441009842137**
Option 1 ID : **4410093321619**
Option 2 ID : **4410093321618**
Option 3 ID : **4410093321617**
Option 4 ID : **4410093321616**

Q. वह बालक _____ बैल है।
9

Ans
✓ 1. निरा
✗ 2. सब
✗ 3. हम
✗ 4. गाय

Question ID : **441009837263**
Option 1 ID : **4410093302173**
Option 2 ID : **4410093302174**
Option 3 ID : **4410093302175**
Option 4 ID : **4410093302172**

QuickSarkari.com | WhatsApp Channel | Telegram: t.me/quick_sarkari

Q. निम्नलिखित वाक्य को उचित कारक द्वारा पूर्ण करें।
10 तुम यहाँ फर्श ____ ऐसे क्यों बैठे हो।

Ans
✗ 1. आह!

✓ 2. पर

✗ 3. ने

✗ 4. से

Question ID : **441009837143**
Option 1 ID : **4410093301695**
Option 2 ID : **4410093301692**
Option 3 ID : **4410093301694**
Option 4 ID : **4410093301693**

Q. निम्नलिखित वाक्य में रेखांकित शब्द के स्थान पर कोई अन्य सही पर्यायवाची शब्द दिए गए विकल्पों में से
11 चुनिए-
वर्षा के <u>अनन्तर</u> एक दो दिन में ही पृथ्वी का पानी अगोचर हो जाता है।

Ans
✗ 1. अंतर

✗ 2. प्रतीक्षा

✓ 3. बाद

✗ 4. अतः

Question ID : **441009843849**
Option 1 ID : **4410093328264**
Option 2 ID : **4410093328267**
Option 3 ID : **4410093328266**
Option 4 ID : **4410093328265**

Q. वर्तनी की दृष्टि से दिए गए विकल्पों में से शुद्ध वाक्य का चयन करें-
12

Ans
✓ 1. भाइयों में आपसी वैमनस्य है।

✗ 2. भाईयों में बैमनस्यता आपस में है।

✗ 3. भाइयो में आपस वेमनस्य है।

✗ 4. भाई - भाई में वेमनस्यत्व भाव है।

Question ID : **441009843955**
Option 1 ID : **4410093328688**
Option 2 ID : **4410093328690**
Option 3 ID : **4410093328689**
Option 4 ID : **4410093328691**

Q. वर्तनी की दृष्टि से दिए गए वाक्य के किस अंश में त्रुटि है ?
13 अंग्रेज़ों ने ओद्योगिक उन्नति-प्रगति का भारत में केवल आडम्बर खड़ा किया था।

Ans
✗ 1. उन्नति-प्रगति का
✗ 2. भारत में केवल
✗ 3. आडम्बर खड़ा किया था।
✓ 4. अंग्रेज़ों ने ओद्योगिक

Question ID : **441009843886**
Option 1 ID : **4410093328413**
Option 2 ID : **4410093328414**
Option 3 ID : **4410093328415**
Option 4 ID : **4410093328412**

Q. वाक्य क्रम में लिखिए-
14 में नाटक भी (अ/ही माना गया है (ब/भारतीय साहित्यशास्त्र(स/काव्य के अंतर्गत(द।

Ans
✗ 1. द ब स अ
✗ 2. स ब अ द
✗ 3. अ ब स द
✓ 4. स अ द ब

Question ID : **441009842034**
Option 1 ID : **4410093321206**
Option 2 ID : **4410093321205**
Option 3 ID : **4410093321204**
Option 4 ID : **4410093321207**

Q. जो मुक्ति प्राप्ति की इच्छा करे _____
15 उपरोक्त वाक्य खंड के लिए उपयुक्त शब्द चयन कीजिए।

Ans
✗ 1. पारंगत
✗ 2. वाचाल
✗ 3. चिरस्थायी
✓ 4. मुमुक्षु

Question ID : **441009842145**
Option 1 ID : **4410093321649**
Option 2 ID : **4410093321651**
Option 3 ID : **4410093321648**
Option 4 ID : **4410093321650**

QuickSarkari.com | WhatsApp Channel | Telegram: t.me/quick_sarkari

Comprehension:

दिए गए गद्यांश के आधार पर निम्नलिखित प्रश्नों का उत्तर दीजिए।
आधुनिक साहित्य में वस्तु-स्थिति-चित्रण की प्रवृत्ति इतनी बढ़ रही है कि आज की कहानी यथासम्भव प्रत्यक्ष अनुभवों की सीमा से बाहर नहीं जाती। हमें केवल इतना सोचने से ही संतोष नहीं होता कि मनोविज्ञान की दृष्टि से ये सभी पात्र मनुष्यों से मिले-जुलते हैं, बल्कि हम यह इत्मीनान चाहते हैं कि वे सचमुच मनुष्य हैं और लेखक ने यथासम्भव उनका जीवन-चरित्र ही लिखा है, क्योंकि कल्पना के गढ़े हुए आदमियों में हमारा विश्वास नहीं है, उनके कार्यों और विचारों से हम प्रभावित नहीं होते। हमें इसका निश्चय हो जाना चाहिए कि लेखक ने जो सृष्टि की है, वह प्रत्यक्ष अनुभवों के आधार पर की गई है और अपने पात्रों की ज़बान से वह खुद बोल रहा है। इसीलिए साहित्य को कुछ समालोचकों ने लेखक का मनोवैज्ञानिक जीवन-चरित्र कहा है।

SubQuestion No : 16

Q. निम्न में से मनुष्य का पर्यायवाची क्या नहीं है?
16

Ans

✗ 1. मानव

✗ 2. नर

✓ 3. जीव

✗ 4. मर्त्य

Question ID : **441009843275**
Option 1 ID : **4410093326005**
Option 2 ID : **4410093326004**
Option 3 ID : **4410093326007**
Option 4 ID : **4410093326006**

Comprehension:

दिए गए गद्यांश के आधार पर निम्नलिखित प्रश्नों का उत्तर दीजिए।
आधुनिक साहित्य में वस्तु-स्थिति-चित्रण की प्रवृत्ति इतनी बढ़ रही है कि आज की कहानी यथासम्भव प्रत्यक्ष अनुभवों की सीमा से बाहर नहीं जाती। हमें केवल इतना सोचने से ही संतोष नहीं होता कि मनोविज्ञान की दृष्टि से ये सभी पात्र मनुष्यों से मिले-जुलते हैं, बल्कि हम यह इत्मीनान चाहते हैं कि वे सचमुच मनुष्य हैं और लेखक ने यथासम्भव उनका जीवन-चरित्र ही लिखा है, क्योंकि कल्पना के गढ़े हुए आदमियों में हमारा विश्वास नहीं है, उनके कार्यों और विचारों से हम प्रभावित नहीं होते। हमें इसका निश्चय हो जाना चाहिए कि लेखक ने जो सृष्टि की है, वह प्रत्यक्ष अनुभवों के आधार पर की गई है और अपने पात्रों की ज़बान से वह खुद बोल रहा है। इसीलिए साहित्य को कुछ समालोचकों ने लेखक का मनोवैज्ञानिक जीवन-चरित्र कहा है।

SubQuestion No : 17

Q. उपर्युक्त गद्यांश का उचित सारांश निम्न में से क्या होगा?
17

Ans

✓ 1. साहित्य को यथार्थवादी होना चाहिए

✗ 2. साहित्य को उपयोगितावादी होना चाहिए

✗ 3. साहित्य को कल्पनाशील होना चाहिए

✗ 4. साहित्य को आदर्शवादी होना चाहिए

Question ID : **441009843278**
Option 1 ID : **4410093326019**
Option 2 ID : **4410093326018**
Option 3 ID : **4410093326016**
Option 4 ID : **4410093326017**

QuickSarkari.com | WhatsApp Channel | Telegram: t.me/quick_sarkari

Comprehension:

दिए गए गद्यांश के आधार पर निम्नलिखित प्रश्नों का उत्तर दीजिए।
आधुनिक साहित्य में वस्तु-स्थिति-चित्रण की प्रवृत्ति इतनी बढ़ रही है कि आज की कहानी यथासम्भव प्रत्यक्ष अनुभवों की सीमा से बाहर नहीं जाती। हमें केवल इतना सोचने से ही संतोष नहीं होता कि मनोविज्ञान की दृष्टि से ये सभी पात्र मनुष्यों से मिले-जुलते हैं, बल्कि हम यह इत्मीनान चाहते हैं कि वे सचमुच मनुष्य हैं और लेखक ने यथासम्भव उनका जीवन-चरित्र ही लिखा है, क्योंकि कल्पना के गढ़े हुए आदमियों में हमारा विश्वास नहीं है, उनके कार्यों और विचारों से हम प्रभावित नहीं होते। हमें इसका निश्चय हो जाना चाहिए कि लेखक ने जो सृष्टि की है, वह प्रत्यक्ष अनुभवों के आधार पर की गई है और अपने पात्रों की ज़बान से वह खुद बोल रहा है। इसीलिए साहित्य को कुछ समालोचकों ने लेखक का मनोवैज्ञानिक जीवन-चरित्र कहा है।

SubQuestion No : 18

Q. प्रस्तुत गद्यांश में किस बात पर अधिक बल दिया गया है?
18

Ans

✗ 1. लेखक की रचना प्रक्रिया

✓ 2. साहित्य में यथार्थ

✗ 3. साहित्य और विषय वस्तु

✗ 4. साहित्य में कल्पना

Question ID : **441009843274**
Option 1 ID : **4410093326000**
Option 2 ID : **4410093326003**
Option 3 ID : **4410093326001**
Option 4 ID : **4410093326002**

Comprehension:

दिए गए गद्यांश के आधार पर निम्नलिखित प्रश्नों का उत्तर दीजिए।
आधुनिक साहित्य में वस्तु-स्थिति-चित्रण की प्रवृत्ति इतनी बढ़ रही है कि आज की कहानी यथासम्भव प्रत्यक्ष अनुभवों की सीमा से बाहर नहीं जाती। हमें केवल इतना सोचने से ही संतोष नहीं होता कि मनोविज्ञान की दृष्टि से ये सभी पात्र मनुष्यों से मिले-जुलते हैं, बल्कि हम यह इत्मीनान चाहते हैं कि वे सचमुच मनुष्य हैं और लेखक ने यथासम्भव उनका जीवन-चरित्र ही लिखा है, क्योंकि कल्पना के गढ़े हुए आदमियों में हमारा विश्वास नहीं है, उनके कार्यों और विचारों से हम प्रभावित नहीं होते। हमें इसका निश्चय हो जाना चाहिए कि लेखक ने जो सृष्टि की है, वह प्रत्यक्ष अनुभवों के आधार पर की गई है और अपने पात्रों की ज़बान से वह खुद बोल रहा है। इसीलिए साहित्य को कुछ समालोचकों ने लेखक का मनोवैज्ञानिक जीवन-चरित्र कहा है।

SubQuestion No : 19

Q. 'मनोविज्ञान' शब्द का क्या अर्थ है?
19

Ans

✗ 1. मानव का विज्ञान

✗ 2. मानवीय विज्ञान

✗ 3. आत्मा का विज्ञान

✓ 4. मन का विज्ञान

Question ID : **441009843277**
Option 1 ID : **4410093326012**
Option 2 ID : **4410093326014**
Option 3 ID : **4410093326015**
Option 4 ID : **4410093326013**

Comprehension:

दिए गए गद्यांश के आधार पर निम्नलिखित प्रश्नों का उत्तर दीजिए।
आधुनिक साहित्य में वस्तु-स्थिति-चित्रण की प्रवृत्ति इतनी बढ़ रही है कि आज की कहानी यथासम्भव प्रत्यक्ष अनुभवों की सीमा से बाहर नहीं जाती। हमें केवल इतना सोचने से ही संतोष नहीं होता कि मनोविज्ञान की दृष्टि से ये सभी पात्र मनुष्यों से मिले-जुलते हैं, बल्कि हम यह इत्मीनान चाहते हैं कि वे सचमुच मनुष्य हैं और लेखक ने यथासम्भव उनका जीवन-चरित्र ही लिखा है, क्योंकि कल्पना के गढ़े हुए आदमियों में हमारा विश्वास नहीं है, उनके कार्यों और विचारों से हम प्रभावित नहीं होते। हमें इसका निश्चय हो जाना चाहिए कि लेखक ने जो सृष्टि की है, वह प्रत्यक्ष अनुभवों के आधार पर की गई है और अपने पात्रों की ज़बान से वह खुद बोल रहा है। इसीलिए साहित्य को कुछ समालोचकों ने लेखक का मनोवैज्ञानिक जीवन-चरित्र कहा है।

SubQuestion No : 20

Q. निम्न में से 'प्रत्यक्ष' का विलोम शब्द क्या है?
20

Ans

✗ 1. प्रकट

✗ 2. प्रमुख

✗ 3. प्रथम

✓ 4. परोक्ष

Question ID : **441009843276**
Option 1 ID : **4410093326010**
Option 2 ID : **4410093326009**
Option 3 ID : **4410093326011**
Option 4 ID : **4410093326008**

Section : **Discipline1**

Q. अपरदाहारी वे जीव होते हैं जो _____।
1

Ans

✗ 1. केवल पादपों का उपभोग करते हैं

✓ 2. मृत और क्षयमान कार्बनिक पदार्थों पर भरण करते हैं

✗ 3. प्रकाश संश्लेषण के माध्यम से ऊर्जा उत्पन्न करते हैं

✗ 4. भोजन हेतु अन्य पशुओं का शिकार करते हैं

Question ID : **441009658754**
Option 1 ID : **4410092589327**
Option 2 ID : **4410092589329**
Option 3 ID : **4410092589330**
Option 4 ID : **4410092589328**

QuickSarkari.com | WhatsApp Channel | Telegram: t.me/quick_sarkari

Q. क्षोभमंडल में ऊंचाई के साथ तापमान किस दर से घटता है?
2

Ans
✗ 1. 1°C प्रति 100 m

✗ 2. 1°C प्रति 500 m

✓ 3. 1°C प्रति 165 m

✗ 4. 0.5°C प्रति 165 m

Question ID : **441009658736**
Option 1 ID : **4410092589255**
Option 2 ID : **4410092589257**
Option 3 ID : **4410092589256**
Option 4 ID : **4410092589258**

Q. Which of the following is a direct impact of wind on agriculture?
3

Ans
✓ 1. Dislodging of seed heads and fruits

✗ 2. Enhancement of soil fertility

✗ 3. Reduction of soil moisture loss

✗ 4. Acceleration of pollination

Question ID : **441009658809**
Option 1 ID : **4410092589549**
Option 2 ID : **4410092589547**
Option 3 ID : **4410092589550**
Option 4 ID : **4410092589548**

Q. REDD+ के लिए वारसॉ फ्रेमवर्क, जो REDD+ कार्यान्वयन के लिए दिशानिर्देश प्रदान करता है, को किस कॉन्फ्रेंस ऑफ पार्टीज (COP) में अपनाया गया था?
4

Ans
✗ 1. COP 15

✗ 2. COP 13

✓ 3. COP 19

✗ 4. COP 21

Question ID : **441009658852**
Option 1 ID : **4410092589720**
Option 2 ID : **4410092589719**
Option 3 ID : **4410092589721**
Option 4 ID : **4410092589722**

QuickSarkari.com | WhatsApp Channel | Telegram: t.me/quick_sarkari

Q. भारत में कृषि के लिए भू-भाग और स्थलाकृति के कारण प्रत्यक्ष चुनौती निम्नलिखित में से कौन-सी नहीं है?
5

Ans
✔ 1. मृदा उर्वरता में सुधार

✗ 2. खड़ी ढलानों पर मृदा अपरदन

✗ 3. जुताई में कठिनाई

✗ 4. कृषि यंत्रीकरण में अवरोध

Question ID : **441009658812**
Option 1 ID : **4410092589561**
Option 2 ID : **4410092589559**
Option 3 ID : **4410092589560**
Option 4 ID : **4410092589562**

Q. थॉर्नथवेट वर्गीकरण (Thornthwaite's classification) के अनुसार, निम्नलिखित में से कौन-सा विकल्प, 0 और 20 के बीच आर्द्रता सूचकांक वाले क्षेत्र का वर्णन करता है?
6

Ans
✗ 1. अर्ध-शुष्क (Semi-arid)

✔ 2. नम उप-आर्द्र (Moist subhumid)

✗ 3. शुष्क उप-आर्द्र (Dry subhumid)

✗ 4. आर्द्र (Humid)

Question ID : **441009658750**
Option 1 ID : **4410092589311**
Option 2 ID : **4410092589312**
Option 3 ID : **4410092589314**
Option 4 ID : **4410092589313**

Q. Which of the following groups are members of the Kingdom Protista?
7

Ans
✗ 1. Dinoflagellates, Bacteria, Viroids

✗ 2. Algae, Bryophytes, Gymnosperms

✗ 3. Fungi, Lichens, Viruses

✔ 4. Euglenoids, Protozoans, Slime-moulds

Question ID : **441009658802**
Option 1 ID : **4410092589522**
Option 2 ID : **4410092589519**
Option 3 ID : **4410092589521**
Option 4 ID : **4410092589520**

Q. शुष्क वायुमंडल में, आर्गन (Ar) की मात्रा का प्रतिशत कितना होता है?
8

Ans
✔ 1. 0.93%

✘ 2. 0.003%

✘ 3. 0.0093%

✘ 4. 9.3%

Question ID : **441009658738**
Option 1 ID : **4410092589264**
Option 2 ID : **4410092589266**
Option 3 ID : **4410092589263**
Option 4 ID : **4410092589265**

Q. अभिकथन (A) और कारण (R) से क्रमांकित निम्नलिखित दोनों कथनों के संबंध में सही विकल्प का चयन कीजिए।
9

अभिकथन (A): कृषि भूगोल में अनुभवमूलक उपागम इस पर केंद्रित होता है कि कृषि दृश्यभूमि पर वास्तव में क्या विद्यमान है।
कारण (R): यह प्रेरणिक विधियों पर बल देता है और पर्यवेक्षण एवं व्यापकीकरण के माध्यम से मॉडल बनाने के लिए क्षेत्रीय आंकड़ों का उपयोग करता है।

Ans
✘ 1. A सत्य है, लेकिन R असत्य है।

✘ 2. A और R दोनों सत्य हैं, लेकिन R, A की सही व्याख्या नहीं है।

✔ 3. A और R दोनों सत्य हैं, और R, A की सही व्याख्या है।

✘ 4. A असत्य है, लेकिन R सत्य है।

Question ID : **441009658878**
Option 1 ID : **4410092589825**
Option 2 ID : **4410092589824**
Option 3 ID : **4410092589823**
Option 4 ID : **4410092589826**

Q. निम्नलिखित में से किसकी सतह का एल्बिडो उच्चतम होता है?
10

Ans
✘ 1. जल

✘ 2. ऐस्फाल्ट सड़क

✘ 3. बादल

✔ 4. ताज़ा बर्फ

Question ID : **441009658735**
Option 1 ID : **4410092589253**
Option 2 ID : **4410092589254**
Option 3 ID : **4410092589252**
Option 4 ID : **4410092589251**

QuickSarkari.com | WhatsApp Channel | Telegram: t.me/quick_sarkari

Q. Select the option that is correct regarding the following two statements labelled Assertion (A) and Reason (R).
11

Assertion (A): Sub-polar low-pressure areas are formed mainly due to thermal heating.
Reason (R): The meeting of cold polar easterlies and warm westerlies causes air convergence and upliftment.

Ans
✔ 1. A is false, but R is true.

✘ 2. Both A and R are true, but R is not the correct explanation of A.

✘ 3. A is true, but R is false.

✘ 4. Both A and R are true, and R is the correct explanation of A.

Question ID : **441009658734**
Option 1 ID : **4410092589250**
Option 2 ID : **4410092589248**
Option 3 ID : **4410092589249**
Option 4 ID : **4410092589247**

Q. जैवभूगोल के अध्ययन को प्रकृति में गतिक क्या बनाता है?
12

Ans
✘ 1. विवर्तनिक प्लेटों का अपरिवर्ती संचलन

✘ 2. ऋतु पैटर्न में मौसमी परिवर्तन

✘ 3. आवर्ती ज्वालामुखी सक्रियता एवं बाढ़

✔ 4. विशेषकर मानव प्रभाव के कारण, अकार्बनिक और कार्बनिक घटकों में सतत परिवर्तन

Question ID : **441009658739**
Option 1 ID : **4410092589267**
Option 2 ID : **4410092589270**
Option 3 ID : **4410092589268**
Option 4 ID : **4410092589269**

Q. Lamarck's theory is also called the theory of:
13

Ans
✘ 1. Natural selection

✘ 2. Gene flow

✘ 3. Mutation and selection

✔ 4. Use and disuse of organs

Question ID : **441009658803**
Option 1 ID : **4410092589525**
Option 2 ID : **4410092589526**
Option 3 ID : **4410092589523**
Option 4 ID : **4410092589524**

QuickSarkari.com | WhatsApp Channel | Telegram: t.me/quick_sarkari

Q. उपोष्ण उच्च दाब पेटी को 'अश्व अक्षांश (horse latitudes)' के रूप में क्यों संदर्भित किया जाता है?
14

Ans

✗ 1. इस क्षेत्र में आने वाले आक्रामक तूफानों के कारण

✓ 2. शुष्क, शांत परिस्थितियों और हल्की परिवर्ती पवनों के कारण

✗ 3. अधिक वर्षा और प्रभूत वनस्पति के कारण

✗ 4. क्योंकि ये मरुस्थलों के निकट स्थित होते हैं

Question ID : **441009658731**
Option 1 ID : **4410092589235**
Option 2 ID : **4410092589237**
Option 3 ID : **4410092589236**
Option 4 ID : **4410092589238**

Q. वॉन थुनेन मॉडल (Von Thunen's model) के अनुसार, किस ज़ोन की विशेषता सर्वाधिक कृषि गहनता और कोई परती भूमि न होना है?
15

Ans

✗ 1. ज़ोन-4

✗ 2. ज़ोन-5

✓ 3. ज़ोन-3

✗ 4. ज़ोन-1

Question ID : **441009658722**
Option 1 ID : **4410092589201**
Option 2 ID : **4410092589202**
Option 3 ID : **4410092589200**
Option 4 ID : **4410092589199**

Q. मध्य-अक्षांशीय चक्रवात, प्राय: किस वायुमंडलीय स्थिति में बनते हैं?
16

Ans

✓ 1. तेज ऊर्ध्वाधर पवन अपरूपण के क्षेत्र

✗ 2. शांत उष्णकटिबंधीय स्थितियां

✗ 3. तापमान में बहुत कम विपर्यास या कोई विपर्यास नहीं वाले क्षेत्र

✗ 4. पूर्वी पवनों के प्रभुत्व वाले क्षेत्र

Question ID : **441009658733**
Option 1 ID : **4410092589244**
Option 2 ID : **4410092589243**
Option 3 ID : **4410092589245**
Option 4 ID : **4410092589246**

QuickSarkari.com | WhatsApp Channel | Telegram: t.me/quick_sarkari

Q. विमान उड़ाने के लिए समताप मंडल के आदर्श होने का कारण क्या है?
17

Ans
✗ 1. इसमें अपेक्षाकृत अधिक ऑक्सीजन होती है

✗ 2. इसमें गुरुत्वाकर्षण निम्न होता है

✓ 3. यह मौसमी विक्षोभ से मुक्त होता है और इसमें स्थिर वायु संचलन होता है

✗ 4. यह पृथ्वी के चुंबकीय क्षेत्र के अपेक्षाकृत अधिक निकट है

Question ID : **441009658732**
Option 1 ID : **4410092589239**
Option 2 ID : **4410092589240**
Option 3 ID : **4410092589241**
Option 4 ID : **4410092589242**

Q. भारत में संतुलित उर्वरक अनुप्रयोग प्रायः चुनौतीपूर्ण क्यों होता है?
18

Ans
✓ 1. क्योंकि मृदा परीक्षण सुविधाएं अपर्याप्त हैं।

✗ 2. क्योंकि फसलों को संतुलित पोषक तत्वों की आवश्यकता नहीं होती है।

✗ 3. क्योंकि उर्वरक निःशुल्क प्राप्त होते हैं।

✗ 4. क्योंकि भारतीय मृदा प्राकृतिक रूप से संतुलित है।

Question ID : **441009658810**
Option 1 ID : **4410092589553**
Option 2 ID : **4410092589552**
Option 3 ID : **4410092589551**
Option 4 ID : **4410092589554**

Q. भारतीय कृषि में, हरित क्रांति का प्रमुख योगदान क्या था?
19

Ans
✗ 1. सिंचाई के उपयोग में गिरावट

✗ 2. सीढ़ीनुमा कृषि का संवर्धन

✗ 3. जैविक खेती की शुरुआत

✓ 4. उच्च उपज देने वाली किस्मों और आधुनिक मशीनरी की स्वीकृति

Question ID : **441009658807**
Option 1 ID : **4410092589539**
Option 2 ID : **4410092589542**
Option 3 ID : **4410092589540**
Option 4 ID : **4410092589541**

QuickSarkari.com | WhatsApp Channel | Telegram: t.me/quick_sarkari

Q. ब्रिटिश काल के दौरान भारतीय कृषि में प्रगतिरोध का मुख्य कारण किसे माना जाता था?
20

Ans
✗ 1. तकनीकी पिछड़ापन

✗ 2. सिंचाई सुविधाओं का अभाव

✓ 3. शोषणकारी कृषिक संबंध

✗ 4. भू-क्षरण

Question ID : **441009658808**
Option 1 ID : **4410092589545**
Option 2 ID : **4410092589544**
Option 3 ID : **4410092589543**
Option 4 ID : **4410092589546**

Section : **Discipline2**

Q. According to the Gravity Model of migration, migration between two places is more likely when it is:
1

Ans
✓ 1. directly proportional to the population size and inversely proportional to distance

✗ 2. directly proportional to the distance and unrelated to population size

✗ 3. inversely proportional to population size

✗ 4. independent of distance and population size

Question ID : **441009658912**
Option 1 ID : **4410092589959**
Option 2 ID : **4410092589960**
Option 3 ID : **4410092589962**
Option 4 ID : **4410092589961**

Q. नदी के मुहाने पर तलछट के निक्षेप के कारण कौन-सी भू-आकृति निर्मित होती है?
2

Ans
✓ 1. डेल्टा (Delta)

✗ 2. भृगु (Cliff)

✗ 3. प्रायद्वीप (Peninsula)

✗ 4. पठार (Plateau)

Question ID : **441009658804**
Option 1 ID : **4410092589529**
Option 2 ID : **4410092589528**
Option 3 ID : **4410092589527**
Option 4 ID : **4410092589530**

QuickSarkari.com | WhatsApp Channel | Telegram: t.me/quick_sarkari

Q. What does the study of spatial organisation in geography primarily focus on?
3

Ans
✗ 1. The economic development of regions

✓ 2. The pattern and process of geographical phenomena

✗ 3. The biological processes in ecosystems

✗ 4. The historical evolution of civilisations

Question ID : **441009658743**
Option 1 ID : **4410092589285**
Option 2 ID : **4410092589284**
Option 3 ID : **4410092589283**
Option 4 ID : **4410092589286**

Q. निम्नलिखित में से किस भारतीय राज्य में, सबसे पहले ग्रीष्मकालीन मानसून वर्षा होती है?
4

Ans
✓ 1. केरल

✗ 2. महाराष्ट्र

✗ 3. तमिलनाडु

✗ 4. गोवा

Question ID : **441009658753**
Option 1 ID : **4410092589325**
Option 2 ID : **4410092589326**
Option 3 ID : **4410092589323**
Option 4 ID : **4410092589324**

Q. अभिकथन (A) और कारण (R) से क्रमांकित निम्नलिखित दोनों कथनों के संबंध में सही विकल्प का चयन कीजिए।
5

अभिकथन (A): ऐसा माना जाता है कि भारत में 1987 का सूखा, अल-नीनो (El-Niño) के कारण पड़ा था।
कारण (R): अल-नीनो (El-Niño) उष्मकटिबंधीय प्रशांत महासागर के सतही ताप में वृद्धि करता है, जिससे भारतीय मानसून सहित वैश्विक पवन और दाब तंत्र प्रभावित होते हैं।

Ans
✗ 1. A सत्य है, लेकिन R असत्य है।

✗ 2. A असत्य है, लेकिन R सत्य है।

✓ 3. A और R दोनों सत्य हैं, तथा R, A की सही व्याख्या है।

✗ 4. A और R दोनों सत्य हैं, लेकिन R, A की सही व्याख्या नहीं है।

Question ID : **441009658752**
Option 1 ID : **4410092589321**
Option 2 ID : **4410092589322**
Option 3 ID : **4410092589319**
Option 4 ID : **4410092589320**

Q. निम्नलिखित में से किसने नव-नियतत्ववाद (Neo-Determinism) की अवधारणा का प्रस्ताव रखा?
6

Ans
✗ 1. फ्रेडरिक रैट्ज़ेल

✗ 2. विडाल डी ला ब्लॉश

✗ 3. एलेन चर्चिल सेम्पल

✓ 4. ग्रिफ़िथ टेलर

Question ID : **441009659014**
Option 1 ID : **4410092590367**
Option 2 ID : **4410092590370**
Option 3 ID : **4410092590369**
Option 4 ID : **4410092590368**

Q. During the Classical period, which of the following regions became the centre of scientific advancement?
7

Ans
✗ 1. Persia

✓ 2. Greece

✗ 3. Rome

✗ 4. Egypt

Question ID : **441009659018**
Option 1 ID : **4410092590384**
Option 2 ID : **4410092590385**
Option 3 ID : **4410092590383**
Option 4 ID : **4410092590386**

Q. How does mulching help in soil conservation?
8

Ans
✗ 1. By increasing tillage frequency

✗ 2. By exposing soil to sunlight

✗ 3. By reducing moisture and erosion

✓ 4. By conserving moisture and regulating temperature

Question ID : **441009659002**
Option 1 ID : **4410092590319**
Option 2 ID : **4410092590320**
Option 3 ID : **4410092590321**
Option 4 ID : **4410092590322**

QuickSarkari.com | WhatsApp Channel | Telegram: t.me/quick_sarkari

Q. 9 Read the given Assertion (A) and Reason (R) carefully and select the correct option.

Assertion (A): Spatial organisation seeks to understand patterns and processes of phenomena distributed on the earth's surface.
Reason (R): The concept of spatial organisation only focuses on regional uniqueness and not on interconnections between regions.

Ans
✔ 1. A is true, but R is false.

✗ 2. Both A and R are true, and R is the correct explanation of A.

✗ 3. Both A and R are true, but R is not the correct explanation of A.

✗ 4. A is false, but R is true.

Question ID : **441009658745**
Option 1 ID : **4410092589293**
Option 2 ID : **4410092589291**
Option 3 ID : **4410092589292**
Option 4 ID : **4410092589294**

Q. 10 अभिकथन (A) और कारण (R) के रूप में क्रमांकित निम्नलिखित दोनों कथनों के संबंध में सही विकल्प का चयन कीजिए।

अभिकथन (A): भारत में दक्षिण-पश्चिम मानसून पवनें, दक्षिणी गोलार्ध की दक्षिण-पूर्वी व्यापारिक पवनों से उत्पन्न होती हैं।
कारण (R): दक्षिण-पश्चिम मानसून के कारण, अक्टूबर की शुरुआत में कोरोमंडल तट पर वर्षा होती है।

Ans
✗ 1. A सत्य है, लेकिन R असत्य है।

✔ 2. A और R दोनों सत्य हैं, लेकिन R, A की सही व्याख्या नहीं है।

✗ 3. A और R दोनों सत्य हैं, तथा R, A की सही व्याख्या है।

✗ 4. A असत्य है, लेकिन R सत्य है।

Question ID : **441009658751**
Option 1 ID : **4410092589317**
Option 2 ID : **4410092589316**
Option 3 ID : **4410092589315**
Option 4 ID : **4410092589318**

Q. 11 अरावली पर्वतमाला के बारे में निम्नलिखित में से कौन-सा कथन, सत्य है?

Ans
✗ 1. यह नूतनजीन महाकल्प (Cenozoic Era) में निर्मित एक नवीन वलित पर्वतमाला है।

✗ 2. इसका निर्माण हिमालय पर्वतन के दौरान भारतीय और यूरेशियन प्लेटों के संघट्ट के कारण हुआ था।

✗ 3. यह मध्य भारत में हाल ही में हुई ज्वालामुखी सक्रियता का परिणाम है।

✔ 4. यह अरावली-दिल्ली पर्वतन के दौरान निर्मित भारत की सबसे पुराने वलित पर्वत तंत्रों में से एक है।

Question ID : **441009658791**
Option 1 ID : **4410092589475**
Option 2 ID : **4410092589477**
Option 3 ID : **4410092589478**
Option 4 ID : **4410092589476**

Q. Economic characteristics of population include:
12

Ans
✗ 1. age distribution and social group affiliation

✓ 2. labour force engagement and occupational classification

✗ 3. marital status and spoken dialects

✗ 4. religious denomination and cultural identity

Question ID : **441009658978**
Option 1 ID : **4410092590223**
Option 2 ID : **4410092590225**
Option 3 ID : **4410092590224**
Option 4 ID : **4410092590226**

Q. Which of the following best describes the historical approach in geomorphology?
13

Ans
✗ 1. Emphasises the sequence of processes independent of time

✗ 2. Analyses only human-induced changes in the landscape

✓ 3. Studies the historical evolution and development of landforms over time

✗ 4. Focuses on the role of climate in shaping modern landforms

Question ID : **441009658845**
Option 1 ID : **4410092589692**
Option 2 ID : **4410092589691**
Option 3 ID : **4410092589693**
Option 4 ID : **4410092589694**

Q. माल्थस के आलोचकों के अनुसार, निम्नलिखित में से क्या उनकी मान्यताओं का एक प्रमुख दोष है?
14

Ans
✓ 1. वह खाद्य उत्पादन में तकनीकी परिवर्तनों को पहचानने में विफल रहे।

✗ 2. उनका मानना था कि संसाधन अनंत हैं।

✗ 3. उन्होंने जलवायु परिवर्तन के प्रभाव का अनुमान नहीं लगाया था।

✗ 4. उन्होंने शहरी विकास को कम करके आंका।

Question ID : **441009659010**
Option 1 ID : **4410092590351**
Option 2 ID : **4410092590352**
Option 3 ID : **4410092590353**
Option 4 ID : **4410092590354**

Q. When was the National Sample Survey (NSS) established by the Government of India?

Ans
✔ 1. 1950

✘ 2. 1956

✘ 3. 1961

✘ 4. 1948

Question ID : **441009658979**
Option 1 ID : **4410092590228**
Option 2 ID : **4410092590229**
Option 3 ID : **4410092590230**
Option 4 ID : **4410092590227**

Q. Kant's transcendental idealism was developed to reconcile which two contrasting views about the source of human knowledge?

Ans
✘ 1. Empiricism and Skepticism

✔ 2. Rationalism and Empiricism

✘ 3. Idealism and Sophism

✘ 4. Scholasticism and Relativism

Question ID : **441009658909**
Option 1 ID : **4410092589947**
Option 2 ID : **4410092589948**
Option 3 ID : **4410092589950**
Option 4 ID : **4410092589949**

Q. निम्नलिखित में से कौन-से सर्वेक्षण ऐसे महत्वपूर्ण जनसंख्या आंकड़े प्रदान करते हैं, जो प्रायः जनगणना या महत्वपूर्ण पंजीकरण प्रणालियों द्वारा प्राप्त नहीं किए जा सकते हैं?

Ans
✘ 1. पर्यावरणीय प्रभाव आकलन, वन सर्वेक्षण और वन्यजीव जनगणना

✔ 2. राष्ट्रीय नमूना सर्वेक्षण, राष्ट्रीय परिवार स्वास्थ्य सर्वेक्षण और जिला स्तरीय घरेलू सर्वेक्षण

✘ 3. भारतीय भूवैज्ञानिक सर्वेक्षण, आर्थिक सर्वेक्षण और सुदूर संवेदन सर्वेक्षण

✘ 4. भारतीय मौसम विज्ञान सर्वेक्षण, कृषि जनगणना और मृदा स्वास्थ्य सर्वेक्षण

Question ID : **441009658977**
Option 1 ID : **4410092590222**
Option 2 ID : **4410092590220**
Option 3 ID : **4410092590221**
Option 4 ID : **4410092590219**

Q. रेवेनस्टीन की प्रति-धारा (counter-stream) संकल्पना से क्या तात्पर्य है?
18

Ans
✗ 1. केवल एक ही दिशा में प्रवास
✓ 2. मूल स्थान पर वापस जाने के लिए प्रतिलोम प्रवास
✗ 3. ऋतु प्रवास
✗ 4. युद्धों के कारण प्रवास

Question ID : **441009658913**
Option 1 ID : **4410092589964**
Option 2 ID : **4410092589963**
Option 3 ID : **4410092589965**
Option 4 ID : **4410092589966**

Q. अमेरिका को एक अलग महाद्वीप के रूप में दर्शाने वाले प्रथम विश्व मानचित्र को तैयार करने का श्रेय किसे
19 दिया जाता है?

Ans
✗ 1. जेरार्डस मर्केटर (Gerardus Mercator)
✗ 2. सेबस्टियन मुंस्टर (Sebastian Munster)
✗ 3. रिचर्ड हाक्लुयट (Richard Hakluyt)
✓ 4. मार्टिन वाल्डसीमुलर (Martin Waldseemuller)

Question ID : **441009658910**
Option 1 ID : **4410092589951**
Option 2 ID : **4410092589952**
Option 3 ID : **4410092589954**
Option 4 ID : **4410092589953**

Q. What does the radical approach in geography emphasise?
20

Ans
✗ 1. Environmental determinism
✓ 2. Theory of labour value and social justice
✗ 3. Social determinism
✗ 4. Neutral, value-free inquiry

Question ID : **441009659013**
Option 1 ID : **4410092590365**
Option 2 ID : **4410092590363**
Option 3 ID : **4410092590366**
Option 4 ID : **4410092590364**

Section : **Discipline3**

Q. Select the option that is correct regarding the following two statements labelled Assertion (A) and Reason (R).
1

Assertion (A): Behavioural geography focuses on how people perceive and respond to their environment.
Reason (R): Behaviouralism in geography aims to explain spatial behaviour through psychological processes such as perception and cognition.

Ans

✗ 1. A is true, but R is false.

✗ 2. A is false, but R is true.

✓ 3. Both A and R are true, and R is the correct explanation of A.

✗ 4. Both A and R are true, but R is not the correct explanation of A.

Question ID : **441009658765**
Option 1 ID : **4410092589373**
Option 2 ID : **4410092589374**
Option 3 ID : **4410092589371**
Option 4 ID : **4410092589372**

Q. What is a mudflow?
2

Ans

✓ 1. A liquid mass of soil, rock debris, and water moving swiftly

✗ 2. A slow movement of dry soil downslope

✗ 3. A mass of dry rocks rolling down a hill

✗ 4. A flow of molten lava from a volcano

Question ID : **441009658806**
Option 1 ID : **4410092589537**
Option 2 ID : **4410092589535**
Option 3 ID : **4410092589536**
Option 4 ID : **4410092589538**

Q. जर्नल 'एंटीपोड (Antipode)' किस भौगोलिक परिप्रेक्ष्य से संबंधित है?
3

Ans

✓ 1. परिवर्तनवादी भूगोल

✗ 2. निर्धारणात्मक भूगोल

✗ 3. मात्रात्मक भूगोल

✗ 4. व्यवहार भूगोल

Question ID : **441009658762**
Option 1 ID : **4410092589361**
Option 2 ID : **4410092589362**
Option 3 ID : **4410092589359**
Option 4 ID : **4410092589360**

Q. The Economic Deterministic Approach emphasises:
4

Ans
✗ 1. human dependence on natural cycles and traditions

✓ 2. economy as the primary driver of human-environment interaction

✗ 3. cultural beliefs as central to geographical behaviour

✗ 4. climate as the only determining factor in development

Question ID : **441009658768**
Option 1 ID : **4410092589385**
Option 2 ID : **4410092589384**
Option 3 ID : **4410092589383**
Option 4 ID : **4410092589386**

Q. 'डिस्क्रिप्शन रेग्नी लैपोनिया एट सियाम (Description Regni Laponiae et Siam)' पुस्तक के लेखक/लेखिका कौन हैं?
5

Ans
✗ 1. क्लुवेरियस (Cluverius)

✓ 2. बर्नहार्डस वेरेनियस (Bernhardus Varenius)

✗ 3. टॉलेमी (Ptolemy)

✗ 4. अलेक्जेंडर वॉन हम्बोल्ट (Alexander von Humboldt)

Question ID : **441009658830**
Option 1 ID : **4410092589634**
Option 2 ID : **4410092589632**
Option 3 ID : **4410092589631**
Option 4 ID : **4410092589633**

Q. What are 'Chos' in the context of the Shiwalik Hills region?
6

Ans
✗ 1. Glacial landforms found in high Himalayas

✗ 2. Man-made canals used for irrigation

✗ 3. Sacred groves found in tribal areas

✓ 4. Seasonal streams that erode the southern slopes of the Shiwalik Hills

Question ID : **441009658837**
Option 1 ID : **4410092589659**
Option 2 ID : **4410092589660**
Option 3 ID : **4410092589662**
Option 4 ID : **4410092589661**

QuickSarkari.com | WhatsApp Channel | Telegram: t.me/quick_sarkari

Q. लघु हिमालय की कौन-सी पर्वत श्रृंखला हिमाचल प्रदेश में स्थित है?
7

Ans
✗ 1. महाभारत लेख

✓ 2. धौलाधार पर्वत श्रृंखला

✗ 3. नाग टिब्बा पर्वत श्रृंखला

✗ 4. पीर पंजाल पर्वत श्रृंखला

Question ID : **441009658839**
Option 1 ID : **4410092589669**
Option 2 ID : **4410092589667**
Option 3 ID : **4410092589668**
Option 4 ID : **4410092589670**

Q. निम्नलिखित में से कौन-सा, चूना पत्थर भू-भागों में भूजल संसाधनों के प्रबंधन में भूआकृतिकीय समझ के अनुप्रयोग को सर्वोत्तम रूप से दर्शाता है?
8

Ans
✗ 1. सिंचाई के लिए सतही जल निकायों की पहचान

✗ 2. बेसाल्टी क्षेत्रों में बाँधों का डिज़ाइन

✗ 3. उपग्रह डेटा का उपयोग करके वर्षा का अनुमान लगाना

✓ 4. विवर्तनिक और अवसादी विशेषताओं के आधार पर चट्टानों की पारगम्यता का आकलन

Question ID : **441009658723**
Option 1 ID : **4410092589203**
Option 2 ID : **4410092589206**
Option 3 ID : **4410092589205**
Option 4 ID : **4410092589204**

Q. **Select the option that is correct regarding the following two statements labelled Assertion (A) and Reason (R).**
9

Assertion (A): Systematic geography developed from the idea of spatial synthesis and organisation.
Reason (R): Systematic geography relies exclusively on physical geographic elements.

Ans
✗ 1. Both A and R are true, and R is the correct explanation of A.

✗ 2. Both A and R are true, but R is not the correct explanation of A.

✓ 3. A is false, but R is true.

✗ 4. A is true, but R is false.

Question ID : **441009658759**
Option 1 ID : **4410092589347**
Option 2 ID : **4410092589348**
Option 3 ID : **4410092589350**
Option 4 ID : **4410092589349**

Q. According to Charles Darwin, how does evolution occur?
10

Ans
✔ 1. Slowly and gradually over a very long period of time

✘ 2. By external intervention and artificial selection

✘ 3. Rapidly and in short time spans

✘ 4. Through sudden appearance of new species

Question ID : **441009658825**
Option 1 ID : **4410092589613**
Option 2 ID : **4410092589614**
Option 3 ID : **4410092589611**
Option 4 ID : **4410092589612**

Q. भूगोल में 'अपवादवाद का जनक (father of exceptionalism)' किसे माना जाता है?
11

Ans
✘ 1. रिचर्ड हार्टशॉर्न (Richard Hartshorne)

✔ 2. इम्मैनुएल कांट (Immanuel Kant)

✘ 3. विडाल डे ला ब्लाचे (Vidal de la Blache)

✘ 4. कार्ल रिटर (Carl Ritter)

Question ID : **441009658829**
Option 1 ID : **4410092589630**
Option 2 ID : **4410092589628**
Option 3 ID : **4410092589629**
Option 4 ID : **4410092589627**

Q. Which of the following best describes the focus of Spatial Epidemiology
12 within Medical Geography?

Ans
✔ 1. Mapping disease patterns to understand their spatial distribution

✘ 2. Investigation of medical history and its geographic context

✘ 3. Study of healthcare systems and their accessibility

✘ 4. Analysis of climatic influences on disease

Question ID : **441009658833**
Option 1 ID : **4410092589645**
Option 2 ID : **4410092589646**
Option 3 ID : **4410092589643**
Option 4 ID : **4410092589644**

QuickSarkari.com | WhatsApp Channel | Telegram: t.me/quick_sarkari

Q. Auguste Comte's book 'The Course of Positive Philosophy' primarily emphasised:

Ans

✗ 1. Marxist historical materialism

✗ 2. humanistic approach

✓ 3. positivist philosophy based on scientific principles

✗ 4. existentialism

Question ID : **441009658764**
Option 1 ID : **4410092589370**
Option 2 ID : **4410092589367**
Option 3 ID : **4410092589369**
Option 4 ID : **4410092589368**

Q. In the behavioural approach, what is meant by 'cognitive environment'?

Ans

✗ 1. The environmental factors affecting climate

✗ 2. The geographical terrain influencing human settlement

✗ 3. The economic forces behind population growth

✓ 4. The mental map or perception influencing decisions

Question ID : **441009658758**
Option 1 ID : **4410092589345**
Option 2 ID : **4410092589343**
Option 3 ID : **4410092589346**
Option 4 ID : **4410092589344**

Q. Which of the following statements best describes a caldera?

Ans

✗ 1. A fault line formed by subduction of oceanic plates

✗ 2. A lake formed in a glacial trough due to melting ice

✗ 3. A cone-shaped volcanic hill formed by lava flow

✓ 4. A large volcanic depression formed by a collapse after a massive eruption

Question ID : **441009658789**
Option 1 ID : **4410092589470**
Option 2 ID : **4410092589467**
Option 3 ID : **4410092589468**
Option 4 ID : **4410092589469**

Q. Behaviouralism in human geography emerged as a reaction to which of the following approaches?

16

Ans

✔ 1. Positivism

✘ 2. Regional geography

✘ 3. Cultural ecology

✘ 4. Environmental determinism

Question ID : **441009658761**
Option 1 ID : **4410092589357**
Option 2 ID : **4410092589355**
Option 3 ID : **4410092589358**
Option 4 ID : **4410092589356**

Q. अस्तित्ववादी धारणा 'सार से पहले अस्तित्व (existence before essence)' का तात्पर्य निम्नलिखित में से क्या है?

17

Ans

✘ 1. ब्रह्माण्ड का एक निश्चित उद्देश्य है जिसका अनुसरण मनुष्य को करना चाहिए।

✘ 2. मनुष्य समाज में पूर्वनिर्धारित भूमिकाओं के साथ जन्म लेता है।

✔ 3. लोग अस्तित्व में आने के बाद अपने विकल्पों और कार्यों के माध्यम से स्वयं को परिभाषित करते हैं।

✘ 4. मानवीय क्रियाएं पर्यावरणीय कारकों द्वारा निर्धारित होती हैं।

Question ID : **441009658763**
Option 1 ID : **4410092589363**
Option 2 ID : **4410092589365**
Option 3 ID : **4410092589364**
Option 4 ID : **4410092589366**

Q. The idea that regions are defined by the unique combination of interrelated phenomena is central to:

18

Ans

✘ 1. behavioural geography

✘ 2. environmental determinism

✔ 3. areal differentiation

✘ 4. spatial analysis

Question ID : **441009658760**
Option 1 ID : **4410092589354**
Option 2 ID : **4410092589353**
Option 3 ID : **4410092589352**
Option 4 ID : **4410092589351**

Q. According to Kant, which of the following best describes the distinction between anthropology and physical geography?
19

Ans
✗ 1. Anthropology is concerned with economic systems, physical geography with political boundaries.

✗ 2. Both anthropology and physical geography study the same aspects of human life.

✗ 3. Anthropology studies only human history, while physical geography studies climate.

✓ 4. Anthropology deals with the inner senses, and physical geography deals with outer senses.

Question ID : **441009658832**
Option 1 ID : **4410092589640**
Option 2 ID : **4410092589639**
Option 3 ID : **4410092589642**
Option 4 ID : **4410092589641**

Q. The process of abrasion caused by wind is also commonly referred to as:
20

Ans
✓ 1. Sandblasting

✗ 2. Plucking

✗ 3. Sheet erosion

✗ 4. Mass wasting

Question ID : **441009658805**
Option 1 ID : **4410092589533**
Option 2 ID : **4410092589532**
Option 3 ID : **4410092589531**
Option 4 ID : **4410092589534**

Section : **Discipline4**

Q. आइसो-हाइटल विधि (iso-hyetal method), किस प्रकार के बेसिन में अनुप्रयुक्त होती है?
1

Ans
✓ 1. 5000 km² से बड़े बेसिन

✗ 2. बिना वर्षा केंद्रों वाले क्षेत्र

✗ 3. शहरी जलग्रहण क्षेत्र

✗ 4. 500 km² से कम क्षेत्रफल वाले छोटे बेसिन

Question ID : **441009658981**
Option 1 ID : **4410092590238**
Option 2 ID : **4410092590237**
Option 3 ID : **4410092590235**
Option 4 ID : **4410092590236**

QuickSarkari.com | WhatsApp Channel | Telegram: t.me/quick_sarkari

Q. निम्नलिखित में से कौन-सा एसडीजी (SDG), सर्वत्र सभी रूपों में गरीबी उन्मूलन पर केंद्रित है?
2

Ans
✗ 1. SDG 4
✗ 2. SDG 3
✗ 3. SDG 2
✓ 4. SDG 1

Question ID : **441009658794**
Option 1 ID : **4410092589490**
Option 2 ID : **4410092589489**
Option 3 ID : **4410092589488**
Option 4 ID : **4410092589487**

Q. Which type of settlement is found in remote forested or hilly regions?
3

Ans
✓ 1. Dispersed
✗ 2. Semi-clustered
✗ 3. Hamlet
✗ 4. Compact

Question ID : **441009659025**
Option 1 ID : **4410092590413**
Option 2 ID : **4410092590414**
Option 3 ID : **4410092590411**
Option 4 ID : **4410092590412**

Q. Which of the following is NOT typically associated with household industries?
4

Ans
✗ 1. Pottery and bricks
✗ 2. Leather products
✗ 3. Bamboo crafts
✓ 4. Automobile

Question ID : **441009658999**
Option 1 ID : **4410092590308**
Option 2 ID : **4410092590307**
Option 3 ID : **4410092590310**
Option 4 ID : **4410092590309**

QuickSarkari.com | WhatsApp Channel | Telegram: t.me/quick_sarkari

Q. संघट्ट और संलयन प्रक्रिया के अनुसार, वर्षण तब होता है जब जल की बूँदें _____।
5

Ans
✗ 1. संघनन के तुरंत बाद जम जाती हैं

✗ 2. वाष्पित होकर बर्फ के क्रिस्टल बनाती हैं

✓ 3. टकराती हैं और मिलकर बड़ी बूँदें बनाती हैं

✗ 4. प्रबल अधोमुखी पवन धाराओं के कारण गिरती हैं

Question ID : **441009658980**
Option 1 ID : **4410092590232**
Option 2 ID : **4410092590231**
Option 3 ID : **4410092590233**
Option 4 ID : **4410092590234**

Q. Under which atmospheric condition does sleet typically occur?
6

Ans
✗ 1. During a dry cold front passage

✗ 2. When all air layers are below freezing

✓ 3. When a warm layer overlies a subfreezing layer near the surface

✗ 4. In a completely warm air column

Question ID : **441009658982**
Option 1 ID : **4410092590242**
Option 2 ID : **4410092590239**
Option 3 ID : **4410092590241**
Option 4 ID : **4410092590240**

Q. Which of the following is NOT a stated objective of the National Food Security Mission (NFSM)?
7

Ans
✓ 1. Promoting exports of edible oils to boost farm income

✗ 2. Enhancing productivity of rice, wheat, and pulses

✗ 3. Reducing dependency on edible oil imports

✗ 4. Restoring soil fertility and improving farm-level economy

Question ID : **441009658797**
Option 1 ID : **4410092589500**
Option 2 ID : **4410092589499**
Option 3 ID : **4410092589502**
Option 4 ID : **4410092589501**

QuickSarkari.com | WhatsApp Channel | Telegram: t.me/quick_sarkari

Q. नगरीय ऊष्मा द्वीप (UHI) क्या है?
8

Ans
✗ 1. उच्च वायु प्रदूषण वाला नगरीय क्षेत्र

✗ 2. नगरों में मरूस्थलीयन क्षेत्र

✓ 3. मानव गतिविधियों के कारण उल्लेखनीय रूप से गर्म नगरीय क्षेत्र

✗ 4. घनी आबादी वाला नगरीय भाग

Question ID : **441009659026**
Option 1 ID : **4410092590415**
Option 2 ID : **4410092590418**
Option 3 ID : **4410092590417**
Option 4 ID : **4410092590416**

Q. भारत में सूक्ष्म, लघु और मध्यम उद्यम विकास (MSMED) अधिनियम किस वर्ष लागू किया गया था?
9

Ans
✓ 1. 2006

✗ 2. 2013

✗ 3. 2001

✗ 4. 1999

Question ID : **441009659001**
Option 1 ID : **4410092590317**
Option 2 ID : **4410092590318**
Option 3 ID : **4410092590316**
Option 4 ID : **4410092590315**

Q. 2011 की जनगणना के अनुसार, भारत की शहरी आबादी का कितना प्रतिशत हिस्सा मलिन बस्तियों (slums) में रहता है?
10

Ans
✗ 1. 25%

✗ 2. 30%

✓ 3. 17%

✗ 4. 10%

Question ID : **441009659030**
Option 1 ID : **4410092590432**
Option 2 ID : **4410092590433**
Option 3 ID : **4410092590431**
Option 4 ID : **4410092590434**

QuickSarkari.com | WhatsApp Channel | Telegram: t.me/quick_sarkari

Q. 'अच्छा (Good)' AQI मान, प्राय: किस रेंज में स्थित होता है?
11

Ans
✗ 1. 201–300

✓ 2. 0–50

✗ 3. 51–100

✗ 4. 101–200

Question ID : **441009658795**
Option 1 ID : **4410092589494**
Option 2 ID : **4410092589491**
Option 3 ID : **4410092589492**
Option 4 ID : **4410092589493**

Q. निम्नलिखित में से कौन-सा युग्म स्थानांतरी कृषि के क्षेत्रीय नामों और उनके संगत स्थानों को सही रूप से
12 निरूपित करता है?

Ans
✗ 1. झूम – मध्य अमेरिका; मिल्पा – उत्तर-पूर्वी भारत; लदांग – अफ्रीका

✓ 2. झूम – उत्तर-पूर्वी भारत; मिल्पा – मध्य अमेरिका; लदांग – इंडोनेशिया और मलेशिया

✗ 3. झूम – इंडोनेशिया; मिल्पा – अफ्रीका; लदांग – दक्षिण अमेरिका

✗ 4. झूम – दक्षिण भारत; मिल्पा – दक्षिण पूर्व एशिया; लदांग – जापान

Question ID : **441009658985**
Option 1 ID : **4410092590252**
Option 2 ID : **4410092590253**
Option 3 ID : **4410092590251**
Option 4 ID : **4410092590254**

Q. What does a high Biological Oxygen Demand (BOD) value indicate when
13 assessing the quality of water in a water body?

Ans
✓ 1. The water is heavily polluted with organic waste.

✗ 2. The water contains fewer dissolved nutrients.

✗ 3. The water is safe for drinking purposes.

✗ 4. The water has high levels of chemical waste.

Question ID : **441009658799**
Option 1 ID : **4410092589509**
Option 2 ID : **4410092589508**
Option 3 ID : **4410092589507**
Option 4 ID : **4410092589510**

Q. 17 सतत विकास लक्ष्यों के अंतर्गत कितने विशिष्ट लक्ष्य शामिल हैं?
14

Ans

✗ 1. 102

✓ 2. 169

✗ 3. 178

✗ 4. 149

Question ID : **441009658792**
Option 1 ID : **4410092589479**
Option 2 ID : **4410092589481**
Option 3 ID : **4410092589482**
Option 4 ID : **4410092589480**

Q. उस अपवाह प्रतिरूप को क्या कहा जाता है जो वर्तमान में अपरदित पृष्ठ (now-eroded surface) पर
15 विकसित हुआ तथा विभिन्न संरचना वाली अधःस्थ शैलों (underlying rocks) में कर्तित है?

Ans

✗ 1. द्रुमाकृतिक अपवाह (Dendritic drainage)

✓ 2. अध्यारोपित अपवाह (Superimposed drainage)

✗ 3. मल्टीबेसिनल अपवाह (Multibasinal drainage)

✗ 4. पूर्ववर्ती अपवाह (Antecedent drainage)

Question ID : **441009658774**
Option 1 ID : **4410092589407**
Option 2 ID : **4410092589409**
Option 3 ID : **4410092589410**
Option 4 ID : **4410092589408**

Q. सैन फ्रांसिस्को के निकट सिलिकॉन वैली निम्नलिखित में से किसका एक उदाहरण है?
16

Ans

✗ 1. वस्त्र उद्योग

✗ 2. कृषि-आधारित उद्योग

✓ 3. प्रौद्योगिक ध्रुव

✗ 4. पारंपरिक विनिर्माण हब

Question ID : **441009659000**
Option 1 ID : **4410092590311**
Option 2 ID : **4410092590314**
Option 3 ID : **4410092590312**
Option 4 ID : **4410092590313**

Q. निम्नलिखित में से कौन-सा, खाद्य सुरक्षा के तीन मुख्य तत्वों में से एक नहीं है?
17

Ans
✗ 1. खाद्य उपलब्धता

✓ 2. खाद्य विपणन

✗ 3. खाद्य उपयोग

✗ 4. खाद्य तक पहुंच

Question ID : **441009658798**
Option 1 ID : **4410092589503**
Option 2 ID : **4410092589505**
Option 3 ID : **4410092589506**
Option 4 ID : **4410092589504**

Q. ट्रेलिस अपवाही पैटर्न प्रायः उन स्थलाकृतियों में पाया जाता है, जहाँ _____।
18

Ans
✗ 1. केवल मृदु अवसादी शैलें मौजूद होती हैं

✓ 2. मूलाधार संरचना में दृढ़ और मृदु शैलों की एकांतर पट्टियां होती हैं

✗ 3. की स्थलाकृतियों में दृढ़ क्रिस्टलीय शैलों का प्रभुत्व होता है

✗ 4. का क्षेत्र बिना किसी संरचनात्मक नियंत्रण के सपाट होता है

Question ID : **441009658773**
Option 1 ID : **4410092589405**
Option 2 ID : **4410092589404**
Option 3 ID : **4410092589403**
Option 4 ID : **4410092589406**

Q. What does the term social capital primarily refer to in the context of social well-being?
19

Ans
✗ 1. Level of industrial development in a region

✗ 2. Value of natural resources in a society

✗ 3. Economic investments made by the government

✓ 4. Strength of social networks and relationships

Question ID : **441009658842**
Option 1 ID : **4410092589681**
Option 2 ID : **4410092589682**
Option 3 ID : **4410092589679**
Option 4 ID : **4410092589680**

QuickSarkari.com | WhatsApp Channel | Telegram: t.me/quick_sarkari

Q. सापेक्ष आर्द्रता (relative humidity) से क्या तात्पर्य है?
20

Ans
✗ 1. वायुमंडल में जल वाष्प का वास्तविक आयतन

✗ 2. पूरे समय वायु में मौजूद आर्द्रता की कुल मात्रा

✓ 3. दिए गए तापमान पर अपनी अधिकतम क्षमता की तुलना में वायु में मौजूद आर्द्रता का प्रतिशत

✗ 4. ओसांक तापमान और वास्तविक तापमान का अंतर

Question ID : **441009658801**
Option 1 ID : **4410092589516**
Option 2 ID : **4410092589515**
Option 3 ID : **4410092589517**
Option 4 ID : **4410092589518**

Section : **Discipline5**

Q. As per the Ancient Monuments and Archaeological Sites and Remains Act,
1 which of the following are protected under the law?

Ans
✓ 1. Heritage sites, monuments, archaeological sites, and sculptures

✗ 2. Only religious buildings

✗ 3. Only monuments and forts

✗ 4. Only archaeological sites and excavation reports

Question ID : **441009658853**
Option 1 ID : **4410092589726**
Option 2 ID : **4410092589724**
Option 3 ID : **4410092589723**
Option 4 ID : **4410092589725**

Q. निम्नलिखित में से किसने अवस्थिति-खंड (Location Quotient) विधि का उपयोग करके श्रेणी I
2 भारतीय शहरों के कार्यात्मक वर्गीकरण का सर्वप्रथम प्रयास किया?

Ans
✓ 1. अमृत लाल

✗ 2. जी. एस. घुर्ये

✗ 3. क़ाज़ी अहमद

✗ 4. आर. एल. सिंह

Question ID : **441009659027**
Option 1 ID : **4410092590422**
Option 2 ID : **4410092590419**
Option 3 ID : **4410092590421**
Option 4 ID : **4410092590420**

Q. Jean Brunhes is associated with which geographical philosophy?
3

Ans
- ✗ 1. Neo-determinism
- ✓ 2. Possibilism
- ✗ 3. Regionalism
- ✗ 4. Environmental determinism

Question ID : **441009658944**
Option 1 ID : **4410092590088**
Option 2 ID : **4410092590087**
Option 3 ID : **4410092590089**
Option 4 ID : **4410092590090**

Q. वर्ष 2021 में यूनेस्को विश्व धरोहर स्थल के रूप में मान्यता प्राप्त हड़प्पा नगर 'धोलावीरा' किस भारतीय राज्य में स्थित है?
4

Ans
- ✗ 1. हरियाणा
- ✓ 2. गुजरात
- ✗ 3. पंजाब
- ✗ 4. राजस्थान

Question ID : **441009658854**
Option 1 ID : **4410092589727**
Option 2 ID : **4410092589728**
Option 3 ID : **4410092589729**
Option 4 ID : **4410092589730**

Q. मानव भूगोल में, क्षेत्रीय विभेदन उपागम का मुख्य फोकस क्या होता था?
5

Ans
- ✗ 1. भौतिकी के नियमों और सांख्यिकीय तकनीकों का उपयोग करना
- ✗ 2. जलवायु प्रकारों के आधार पर भू-पृष्ठ का वर्गीकरण करना
- ✓ 3. क्षेत्रों की विशिष्टता की पहचान करना और उनके बीच अंतर को समझना
- ✗ 4. अंतरिक्ष में केवल आर्थिक पैटर्न का अध्ययन करना

Question ID : **441009658947**
Option 1 ID : **4410092590099**
Option 2 ID : **4410092590102**
Option 3 ID : **4410092590100**
Option 4 ID : **4410092590101**

QuickSarkari.com | WhatsApp Channel | Telegram: t.me/quick_sarkari

Q. ग्रामीण बस्तियों का आयताकार स्वरूप प्रायः _____ में पाया जाता है।
6

Ans
✔ 1. मैदानी क्षेत्रों

✗ 2. मरुस्थलीय क्षेत्रों

✗ 3. तटीय क्षेत्रों

✗ 4. पहाड़ी क्षेत्रों

Question ID : **441009659024**
Option 1 ID : **4410092590410**
Option 2 ID : **4410092590408**
Option 3 ID : **4410092590409**
Option 4 ID : **4410092590407**

Q. वर्ष 1950 में विश्व में सबसे पहले किस शहर को मेगासिटी (megacity) के रूप में वर्गीकृत किया गया था?
7

Ans
✗ 1. शंघाई

✔ 2. न्यूयॉर्क

✗ 3. टोक्यो

✗ 4. लंदन

Question ID : **441009659028**
Option 1 ID : **4410092590426**
Option 2 ID : **4410092590425**
Option 3 ID : **4410092590423**
Option 4 ID : **4410092590424**

Q. What is the primary reason for the formation of the 'Ring of Fire' around the Pacific Ocean?
8

Ans
✗ 1. Continuous deposition of sediments

✗ 2. Continent-continent plate convergence

✗ 3. Presence of large coral reefs

✔ 4. Subduction of oceanic plates beneath continental and oceanic plates

Question ID : **441009658872**
Option 1 ID : **4410092589800**
Option 2 ID : **4410092589802**
Option 3 ID : **4410092589799**
Option 4 ID : **4410092589801**

QuickSarkari.com | WhatsApp Channel | Telegram: t.me/quick_sarkari

Q. Who advocated the Idealist Approach in geography as a critique of positivism?
9

Ans
✔ 1. Leonard Guelke
✘ 2. Richard Hartshorne
✘ 3. Carl Ritter
✘ 4. David Harvey

Question ID : **441009658946**
Option 1 ID : **4410092590097**
Option 2 ID : **4410092590096**
Option 3 ID : **4410092590095**
Option 4 ID : **4410092590098**

Q. According to Wegener, how were the Rocky and Andes Mountains formed?
10

Ans
✘ 1. Due to volcanic eruptions at plate boundaries
✘ 2. Due to collision of oceanic plates with Eurasia
✔ 3. Due to crumpling of continental edges during westward drift of Americas
✘ 4. Due to upwelling of magma from the mantle

Question ID : **441009658868**
Option 1 ID : **4410092589783**
Option 2 ID : **4410092589786**
Option 3 ID : **4410092589784**
Option 4 ID : **4410092589785**

Q. पूरे देश के समय के लिए भारत के मानक याम्योत्तर (82°30'E) का चयन करने का कारण क्या है?
11

Ans
✘ 1. यह भारत के ठीक मध्य में स्थित है।
✔ 2. इससे पूरे देश में एक समान समय बनाए रखने में मदद मिलती है।
✘ 3. यह अक्षांशीय अंतर के प्रभाव को कम करता है।
✘ 4. यहां देश में सबसे पहले सूर्योदय होता है।

Question ID : **441009658824**
Option 1 ID : **4410092589608**
Option 2 ID : **4410092589609**
Option 3 ID : **4410092589610**
Option 4 ID : **4410092589607**

QuickSarkari.com | WhatsApp Channel | Telegram: t.me/quick_sarkari

Q. Which mountain's summit is the farthest point from the Earth's centre?
12

Ans
- ✗ 1. K2
- ✓ 2. Chimborazo
- ✗ 3. Mauna Kea
- ✗ 4. Mount Everest

Question ID : **441009658818**
Option 1 ID : **4410092589585**
Option 2 ID : **4410092589586**
Option 3 ID : **4410092589584**
Option 4 ID : **4410092589583**

Q. Which of the following statements aligns with post-modernism in geography?
13

Ans
- ✗ 1. Theories should apply uniformly to all cultures.
- ✓ 2. Each local context must be understood on its own terms.
- ✗ 3. The same economic model can explain development in all regions.
- ✗ 4. Universal laws of spatial behaviour are always valid.

Question ID : **441009658949**
Option 1 ID : **4410092590110**
Option 2 ID : **4410092590109**
Option 3 ID : **4410092590107**
Option 4 ID : **4410092590108**

Q. निम्नलिखित में से किस पर्यावरणीय नियतत्ववादी के अनुसार, सिंधु घाटी और मेसोपोटामिया जैसी सभ्यताओं के अंत का मुख्य कारण जलवायु परिवर्तन था?
14

Ans
- ✓ 1. हंटिंगटन (Huntington)
- ✗ 2. मैकिंडर (Mackinder)
- ✗ 3. बोमन (Bowman)
- ✗ 4. चिशोल्म (Chisholm)

Question ID : **441009658945**
Option 1 ID : **4410092590092**
Option 2 ID : **4410092590091**
Option 3 ID : **4410092590093**
Option 4 ID : **4410092590094**

Q. ग्रिनिच माध्य समय (GMT) से भारतीय मानक समय (IST) कितने घंटे आगे है?
15

Ans
✗ 1. 6 घंटे 30 मिनट
✗ 2. 4 घंटे
✗ 3. 5 घंटे
✓ 4. 5 घंटे 30 मिनट

Question ID : **441009658823**
Option 1 ID : **4410092589606**
Option 2 ID : **4410092589603**
Option 3 ID : **4410092589604**
Option 4 ID : **4410092589605**

Q. व्यवहारवादी उपागम, शोध में निम्नलिखित में से किसके उपयोग को प्रोत्साहित करता है?
16

Ans
✓ 1. व्यक्तिगत स्तरीय प्राथमिक आंकड़े
✗ 2. केवल गणितीय प्रतिरूपण
✗ 3. ऐतिहासिक आंकड़े
✗ 4. समेकित जनसांख्यिकीय आंकड़े

Question ID : **441009658943**
Option 1 ID : **4410092590085**
Option 2 ID : **4410092590084**
Option 3 ID : **4410092590083**
Option 4 ID : **4410092590086**

Q. What geological feature is commonly formed when an oceanic plate subducts beneath a continental plate?
17

Ans
✓ 1. Deep-sea trench
✗ 2. Fold mountains
✗ 3. Mid-ocean ridge
✗ 4. Rift valley

Question ID : **441009658865**
Option 1 ID : **4410092589773**
Option 2 ID : **4410092589774**
Option 3 ID : **4410092589772**
Option 4 ID : **4410092589771**

QuickSarkari.com | WhatsApp Channel | Telegram: t.me/quick_sarkari

Q. भारतीय मुख्य भूमि के दक्षिणतम बिंदु को क्या कहा जाता है?
18

Ans
✗ 1. इंदिरा पॉइंट (Indira Point)

✓ 2. केप कोमोरिन (Cape Comorin)

✗ 3. इंदिरा कॉल (Indira Col)

✗ 4. मिनिकॉय (Minicoy)

Question ID : **441009658820**
Option 1 ID : **4410092589592**
Option 2 ID : **4410092589593**
Option 3 ID : **4410092589591**
Option 4 ID : **4410092589594**

Q. जनसंख्या संरचनाओं में स्थानिक विविधताओं का विश्लेषण करने के लिए समाजशास्त्र और जनसांख्यिकी के एकीकरण का अध्ययन निम्नलिखित में से किसके अंतर्गत किया जाता है?
19

Ans
✓ 1. जनसंख्या भूगोल

✗ 2. सांस्कृतिक भूगोल

✗ 3. राजनीतिक भूगोल

✗ 4. आर्थिक भूगोल

Question ID : **441009658942**
Option 1 ID : **4410092590081**
Option 2 ID : **4410092590082**
Option 3 ID : **4410092590079**
Option 4 ID : **4410092590080**

Q. भारत का पूर्व-पश्चिम विस्तार लगभग कितना है?
20

Ans
✗ 1. 2,000 km

✓ 2. 2,933 km

✗ 3. 3,450 km

✗ 4. 2,255 km

Question ID : **441009658821**
Option 1 ID : **4410092589595**
Option 2 ID : **4410092589597**
Option 3 ID : **4410092589598**
Option 4 ID : **4410092589596**

Section : **Discipline6**

QuickSarkari.com | WhatsApp Channel | Telegram: t.me/quick_sarkari

Q. What kind of map is especially useful during wartime strategy?
1

Ans
✗ 1. Population map

✓ 2. Relief map

✗ 3. Climate map

✗ 4. Trade map

Question ID : **441009658887**
Option 1 ID : **4410092589862**
Option 2 ID : **4410092589860**
Option 3 ID : **4410092589861**
Option 4 ID : **4410092589859**

Q. पर्यावरण नियतत्ववाद (environmental determinism) का मूल विचार क्या है?
2

Ans
✗ 1. मनुष्य अपने पर्यावरण को पूरी तरह से नियंत्रित कर सकता है।

✗ 2. प्रौद्योगिकी अकेले मानव विकास को परिभाषित करती है।

✗ 3. मानवीय क्रियाएँ पूर्णतः संस्कृति और परंपरा द्वारा निर्धारित होती हैं।

✓ 4. प्राकृतिक पर्यावरण, मानव व्यवहार और विकास को निर्धारित करता है।

Question ID : **441009658908**
Option 1 ID : **4410092589945**
Option 2 ID : **4410092589946**
Option 3 ID : **4410092589943**
Option 4 ID : **4410092589944**

Q. उस विकल्प का चयन कीजिए, जो अभिकथन (A) और कारण (R) के रूप में उल्लिखित निम्नलिखित दोनों कथनों के संबंध में सत्य है।
3

अभिकथन (A): टेथिस समुद्र का निर्माण दो अपवाही भू-भागों के मध्य एक संकीर्ण, उथले समुद्र के रूप में हुआ था।
कारण (R): टेथिस का समुद्र अधस्तल, तीव्र ज्वालामुखीय सक्रियता का क्षेत्र था।

Ans
✗ 1. A असत्य है, लेकिन R सत्य है।

✗ 2. A और R दोनों सत्य हैं, और R, A की सही व्याख्या है।

✗ 3. A और R दोनों सत्य हैं, लेकिन R, A की सही व्याख्या नहीं है।

✓ 4. A सत्य है, लेकिन R असत्य है।

Question ID : **441009658871**
Option 1 ID : **4410092589798**
Option 2 ID : **4410092589795**
Option 3 ID : **4410092589796**
Option 4 ID : **4410092589797**

Q. Which of the following is an example of a transform fault?
4

Ans
✗ 1. East African Rift
✓ 2. San Andreas Fault
✗ 3. Andes Mountains
✗ 4. Mariana Trench

Question ID : **441009658861**
Option 1 ID : **4410092589758**
Option 2 ID : **4410092589756**
Option 3 ID : **4410092589755**
Option 4 ID : **4410092589757**

Q. Epeirogenic movements are associated with:
5

Ans
✓ 1. Vertical upliftment and subsidence of continental masses
✗ 2. Folding and faulting
✗ 3. Volcanic eruptions
✗ 4. Horizontal compressional forces

Question ID : **441009658859**
Option 1 ID : **4410092589747**
Option 2 ID : **4410092589749**
Option 3 ID : **4410092589750**
Option 4 ID : **4410092589748**

Q. Who is considered a key advocate of the ecological approach in geography?
6

Ans
✗ 1. Alexander von Humboldt
✓ 2. CC Park
✗ 3. Vidal de la Blache
✗ 4. Carl Sauer

Question ID : **441009658724**
Option 1 ID : **4410092589210**
Option 2 ID : **4410092589208**
Option 3 ID : **4410092589207**
Option 4 ID : **4410092589209**

QuickSarkari.com | WhatsApp Channel | Telegram: t.me/quick_sarkari

Q. किस मानवीय गतिविधि ने प्राकृतिक नाइट्रोजन चक्र को महत्वपूर्ण रूप से बाधित किया है?
7

Ans
✔ 1. कृषि में नाइट्रोजन-आधारित उर्वरकों का उपयोग

✘ 2. फॉस्फेट शैलों का खनन

✘ 3. आर्द्रभूमि क्षेत्रों का संरक्षण

✘ 4. बांधों का निर्माण

Question ID : **441009658857**
Option 1 ID : **4410092589740**
Option 2 ID : **4410092589742**
Option 3 ID : **4410092589741**
Option 4 ID : **4410092589739**

Q. Which of the following rock types can turn into metamorphic rocks?
8

Ans
✘ 1. Only intrusive rocks

✘ 2. Only igneous rocks

✘ 3. Only sedimentary rocks

✔ 4. Both sedimentary and igneous rocks

Question ID : **441009658917**
Option 1 ID : **4410092589981**
Option 2 ID : **4410092589980**
Option 3 ID : **4410092589979**
Option 4 ID : **4410092589982**

Q. क्या होता है जब दो महाद्वीपीय प्लेटें, अभिसरण सीमा (convergent boundary) पर टकराती हैं?
9

Ans
✘ 1. मैंटल (mantle) में एक प्लेट नष्ट हो जाती है।

✘ 2. एक रिफ्ट घाटी का निर्माण होता है।

✘ 3. नई महासागरीय पटल का निर्माण होता है।

✔ 4. बड़ी पर्वत श्रेणियां निर्मित होती हैं।

Question ID : **441009658864**
Option 1 ID : **4410092589769**
Option 2 ID : **4410092589768**
Option 3 ID : **4410092589767**
Option 4 ID : **4410092589770**

Q. अम्लीय आग्नेय शैल में कौन-सा खनिज प्रचुर मात्रा में पाया जाता है?
10

Ans
✔ 1. सिलिका
✘ 2. पोटैशियम
✘ 3. मैग्नीशिया
✘ 4. लोहा

Question ID : **441009658915**
Option 1 ID : **4410092589973**
Option 2 ID : **4410092589974**
Option 3 ID : **4410092589972**
Option 4 ID : **4410092589971**

Q. Sedimentary rocks are primarily formed through which process?
11

Ans
✘ 1. Metamorphism
✘ 2. Crystallisation
✔ 3. Lithification
✘ 4. Sublimation

Question ID : **441009658914**
Option 1 ID : **4410092589970**
Option 2 ID : **4410092589967**
Option 3 ID : **4410092589969**
Option 4 ID : **4410092589968**

Q. अवक्षालन (eluviation) में, पदार्थ का परिवहन किस प्रकार होता है?
12

Ans
✔ 1. ऊपरी से निचले मृदा संस्तर की ओर अधोमुखी
✘ 2. एक ही मृदा स्तर के भीतर क्षैतिज रूप से
✘ 3. पवन द्वारा एक मृदा स्तर से दूसरे मृदा स्तर तक
✘ 4. सतह की ओर उपरिमुखी

Question ID : **441009658899**
Option 1 ID : **4410092589909**
Option 2 ID : **4410092589907**
Option 3 ID : **4410092589910**
Option 4 ID : **4410092589908**

QuickSarkari.com | WhatsApp Channel | Telegram: t.me/quick_sarkari

Q. नव-नियतत्ववाद के अनुसार, मानवीय गतिविधियाँ कब रोक दी जानी चाहिए?
13

Ans
✗ 1. जब वे बहुत महँगी हों

✗ 2. जब वे राजनीतिक इच्छाशक्ति के विपरीत हों

✓ 3. जब वे दीर्घकालिक पर्यावरणीय क्षति पहुँचाएँ

✗ 4. जब वे अर्थव्यवस्था के लिए लाभदायक न हों

Question ID : **441009658726**
Option 1 ID : **4410092589215**
Option 2 ID : **4410092589216**
Option 3 ID : **4410092589217**
Option 4 ID : **4410092589218**

Q. एक मानचित्र का पैमाना 1:50,000 है। मानचित्र पर 2 cm, भूमि पर कितना निरूपित करता है?
14

Ans
✗ 1. 10 km

✗ 2. 100 km

✓ 3. 2 km

✗ 4. 1 km

Question ID : **441009658886**
Option 1 ID : **4410092589857**
Option 2 ID : **4410092589858**
Option 3 ID : **4410092589856**
Option 4 ID : **4410092589855**

Q. According to evidence of the theory of continental drift, the source rock for the gold deposits found on the Ghanaian coast is located on the:
15

Ans
✗ 1. Congo Basin

✓ 2. Brazilian coast

✗ 3. Indian Peninsula

✗ 4. Canadian Shield

Question ID : **441009658869**
Option 1 ID : **4410092589787**
Option 2 ID : **4410092589789**
Option 3 ID : **4410092589788**
Option 4 ID : **4410092589790**

QuickSarkari.com | WhatsApp Channel | Telegram: t.me/quick_sarkari

Q. How do maps help international tourists who don't speak the local language?
16

Ans
✗ 1. By displaying real-time traffic updates

✓ 2. By showing visual directions to destinations

✗ 3. By converting currency

✗ 4. By offering free translation services

Question ID : **441009658881**
Option 1 ID : **4410092589837**
Option 2 ID : **4410092589836**
Option 3 ID : **4410092589838**
Option 4 ID : **4410092589835**

Q. मृदा सर्पण (soil creep) क्या है?
17

Ans
✗ 1. जल-संतृप्त मृदा का धीरे-धीरे ढलान की ओर संचलन

✓ 2. ढलानों पर मृदा का अत्यंत धीमा संचलन

✗ 3. ढलानों पर मृदा का तीव्र संचलन

✗ 4. जल-संतृप्त मृदा का तीव्रता से ढलान की ओर संचलन

Question ID : **441009658901**
Option 1 ID : **4410092589916**
Option 2 ID : **4410092589915**
Option 3 ID : **4410092589917**
Option 4 ID : **4410092589918**

Q. Which of the following is an example of a large flood basalt province?
18

Ans
✗ 1. Aravalli Range

✗ 2. Western Ghats

✗ 3. Chotanagpur plateau

✓ 4. Deccan Traps

Question ID : **441009658862**
Option 1 ID : **4410092589762**
Option 2 ID : **4410092589761**
Option 3 ID : **4410092589759**
Option 4 ID : **4410092589760**

QuickSarkari.com | WhatsApp Channel | Telegram: t.me/quick_sarkari

Q. Which of the following is a strategy to enhance carbon sequestration and stabilise the climate? 19

Ans
✗ 1. Increasing plastic production
✗ 2. Expanding fossil fuel subsidies
✗ 3. Promoting monoculture farming
✓ 4. Reforestation and sustainable land use

Question ID : **441009658855**
Option 1 ID : **4410092589731**
Option 2 ID : **4410092589734**
Option 3 ID : **4410092589732**
Option 4 ID : **4410092589733**

Q. मानचित्रण में किस दिशा को आधार दिशा माना जाता है? 20

Ans
✗ 1. दक्षिण
✗ 2. पूर्व
✓ 3. उत्तर
✗ 4. पश्चिम

Question ID : **441009658889**
Option 1 ID : **4410092589870**
Option 2 ID : **4410092589867**
Option 3 ID : **4410092589869**
Option 4 ID : **4410092589868**

Section : **Discipline7**

Q. Which seismic hazard is most commonly associated with transform faults? 1

Ans
✗ 1. Tsunamis from oceanic trench formation
✓ 2. Earthquakes due to sudden horizontal displacement
✗ 3. Volcanic eruptions
✗ 4. Landslides due to uplift

Question ID : **441009658779**
Option 1 ID : **4410092589428**
Option 2 ID : **4410092589430**
Option 3 ID : **4410092589427**
Option 4 ID : **4410092589429**

QuickSarkari.com | WhatsApp Channel | Telegram: t.me/quick_sarkari

Q. निम्नलिखित में से किन कारणों से अंडमान और निकोबार द्वीप समूह भूकंपीय दृष्टि से सक्रिय हैं?
2

Ans
- ✗ 1. वनों की अधिक कटाई और मृदा अपरदन
- ✗ 2. भारतीय प्लेट का फिलीपीन समुद्री प्लेट से टकराव
- ✓ 3. समुद्र तल विस्थापन औरअंतर्जलीय ज्वालामुखी
- ✗ 4. भारतीय प्लेट का अरब प्लेट से टकराव

Question ID : **441009658937**
Option 1 ID : **4410092590061**
Option 2 ID : **4410092590062**
Option 3 ID : **4410092590060**
Option 4 ID : **4410092590059**

Q. कर्क रेखा और मकर रेखा के बीच के क्षेत्र को किस नाम से जाना जाता है?
3

Ans
- ✓ 1. उष्ण कटिबंध
- ✗ 2. उष्णकटिबंधीय क्षेत्र
- ✗ 3. शीतोष्ण कटिबंध
- ✗ 4. शीत कटिबंध

Question ID : **441009658928**
Option 1 ID : **4410092590025**
Option 2 ID : **4410092590023**
Option 3 ID : **4410092590026**
Option 4 ID : **4410092590024**

Q. देश में आपदा प्रबंधन हेतु कानूनी ढांचा स्थापित करने के लिए भारतीय संसद द्वारा आपदा प्रबंधन अधिनियम कब पारित किया गया था?
4

Ans
- ✗ 1. 2015
- ✓ 2. 2005
- ✗ 3. 2002
- ✗ 4. 2012

Question ID : **441009658932**
Option 1 ID : **4410092590039**
Option 2 ID : **4410092590041**
Option 3 ID : **4410092590042**
Option 4 ID : **4410092590040**

QuickSarkari.com | WhatsApp Channel | Telegram: t.me/quick_sarkari

Q. विध्वंसकारी भुज भूकंप किस वर्ष आया था?
5

Ans
✗ 1. 1985

✗ 2. 2003

✗ 3. 2005

✓ 4. 2001

Question ID : **441009658933**
Option 1 ID : **4410092590046**
Option 2 ID : **4410092590044**
Option 3 ID : **4410092590045**
Option 4 ID : **4410092590043**

Q. कनाडा और संयुक्त राज्य अमेरिका (USA) में कितने टाइम जोन हैं?
6

Ans
✗ 1. चार

✗ 2. छह

✗ 3. तीन

✓ 4. पाँच

Question ID : **441009658924**
Option 1 ID : **4410092590007**
Option 2 ID : **4410092590010**
Option 3 ID : **4410092590009**
Option 4 ID : **4410092590008**

Q. स्थालाकृतिक मानचित्र में किन आकृतियों को निरूपित करने के लिए सामान्यतः हरे प्रतीक का उपयोग किया जाता है?
7

Ans
✗ 1. सड़कें और परिवहन नेटवर्क

✗ 2. जल निकाय और कच्छभूमि

✗ 3. कृषि क्षेत्र और बस्तियां

✓ 4. जंगली और वन्य क्षेत्र, फलोद्यान और झाड़ियां

Question ID : **441009658884**
Option 1 ID : **4410092589850**
Option 2 ID : **4410092589848**
Option 3 ID : **4410092589847**
Option 4 ID : **4410092589849**

QuickSarkari.com | WhatsApp Channel | Telegram: t.me/quick_sarkari

Q. निम्नलिखित में से कौन-सी असांतत्य, ऊपरी मेंटल को निचले मेंटल से पृथक करती है?
8

Ans
✗ 1. कानराड असांतत्य (Conrad Discontinuity)

✓ 2. रेपेटी असांतत्य (Repetti Discontinuity)

✗ 3. मोहरोविसिक असांतत्य (Mohorovicic Discontinuity)

✗ 4. गुटेनबर्ग असांतत्य (Gutenberg Discontinuity)

Question ID : **441009658785**
Option 1 ID : **4410092589451**
Option 2 ID : **4410092589453**
Option 3 ID : **4410092589452**
Option 4 ID : **4410092589454**

Q. निम्नलिखित में से कौन-सा विकल्प इस तथ्य की सटीक व्याख्या करता है, कि उत्तर अयनांत (summer solstice) के दौरान उत्तरी गोलार्ध में ग्रीष्म क्यों होती है?
9

Ans
✗ 1. विषुवत् रेखा सूर्य के ठीक सामने होती है

✓ 2. उत्तरी गोलार्ध सूर्य की ओर झुका होता है

✗ 3. मकर-रेखा पर ऊर्ध्वाधर किरणें पड़ती हैं

✗ 4. इस अवधि के दौरान पृथ्वी सूर्य के अधिक निकट होती है

Question ID : **441009658920**
Option 1 ID : **4410092589992**
Option 2 ID : **4410092589993**
Option 3 ID : **4410092589994**
Option 4 ID : **4410092589991**

Q. दक्षिणी गोलार्ध में, शीत अयनांत (winter solstice) कब होता है?
10

Ans
✗ 1. 20 मार्च

✓ 2. 1 जून

✗ 3. 22 सितंबर

✗ 4. 21 दिसंबर

Question ID : **441009658929**
Option 1 ID : **4410092590027**
Option 2 ID : **4410092590028**
Option 3 ID : **4410092590029**
Option 4 ID : **4410092590030**

Q. पश्चिमी भारत के कौन-से राज्य बार-बार सूखे का सामना करते हैं, जिससे जल न्यूनता और कृषि संकट पैदा होता है?
11

Ans
✗ 1. पंजाब और हरियाणा

✗ 2. केरल और कर्नाटक

✓ 3. गुजरात और राजस्थान

✗ 4. गोवा और महाराष्ट्र

Question ID : **441009658934**
Option 1 ID : **4410092590049**
Option 2 ID : **4410092590050**
Option 3 ID : **4410092590048**
Option 4 ID : **4410092590047**

Q. According to Wegener's theory, what was primarily responsible for the westward movement of the continents?
12

Ans
✗ 1. Heat flow from mid-oceanic ridges

✓ 2. Tidal forces exerted by the sun and the moon

✗ 3. Equatorward gravitational pull due to Earth's ellipsoidal shape

✗ 4. Frictional drag of ocean currents

Question ID : **441009658784**
Option 1 ID : **4410092589450**
Option 2 ID : **4410092589449**
Option 3 ID : **4410092589447**
Option 4 ID : **4410092589448**

Q. 'प्रदीप्ति वृत्त (circle of illumination)' क्या होता है?
13

Ans
✗ 1. पृथ्वी का परिक्रमण मार्ग

✗ 2. पृथ्वी को दो गोलार्धों में विभक्त करने वाली रेखा

✓ 3. पृथ्वी के दिन और रात के पार्श्वों के बीच की सीमा

✗ 4. पृथ्वी का अक्ष

Question ID : **441009658922**
Option 1 ID : **4410092589999**
Option 2 ID : **4410092590001**
Option 3 ID : **4410092590002**
Option 4 ID : **4410092590000**

QuickSarkari.com | WhatsApp Channel | Telegram: t.me/quick_sarkari

Q. राष्ट्रीय आपदा प्रबंधन प्राधिकरण (NDMA) के सदस्यों का कार्यकाल कितना है?
14

Ans
✔ 1. 5 वर्ष

✗ 2. 6 वर्ष

✗ 3. 3 वर्ष

✗ 4. 4 वर्ष

Question ID : **441009658936**
Option 1 ID : **4410092590057**
Option 2 ID : **4410092590058**
Option 3 ID : **4410092590055**
Option 4 ID : **4410092590056**

Q. जब ग्रीनविच (0°) का समय दोपहर 12:00 बजे होता है, तब 90° पूर्वी देशांतर पर स्थित थिम्पू (भूटान) का
15 स्थानीय समय ज्ञात कीजिए।

Ans
✗ 1. 6:00 A.M.

✔ 2. 6:00 P.M.

✗ 3. 8:00 P.M.

✗ 4. 8:00 A.M.

Question ID : **441009658918**
Option 1 ID : **4410092589985**
Option 2 ID : **4410092589983**
Option 3 ID : **4410092589984**
Option 4 ID : **4410092589986**

Q. भूमध्य रेखा पर पृथ्वी की घूर्णात्मक चाल लगभग कितनी है?
16

Ans
✗ 1. 2320 km/hr

✔ 2. 1670 km/hr

✗ 3. 1030 km/hr

✗ 4. 800 km/hr

Question ID : **441009658930**
Option 1 ID : **4410092590034**
Option 2 ID : **4410092590032**
Option 3 ID : **4410092590031**
Option 4 ID : **4410092590033**

QuickSarkari.com | WhatsApp Channel | Telegram: t.me/quick_sarkari

Q. निम्नलिखित में से कौन-सा, ब्रह्मांड के स्थायी अवस्था सिद्धांत (Steady State Theory) का सर्वोत्तम रूप से वर्णन करता है?
17

Ans

✗ 1. ब्रह्मांड स्थैतिक है और किसी परिवर्तन के बिना अनंत काल से विद्यमान है।

✗ 2. ब्रह्मांड विस्तार और संकुचन के चक्रीय दौर से गुजरता है।

✗ 3. ब्रह्मांड संकुचित हो रहा है और अंततः एकलता (singularity) में संचयित (collapse) हो जाएगा।

✓ 4. विस्तारित होते ब्रह्मांड में नियत घनत्व बनाए रखने के लिए द्रव्य का सतत निर्माण होता रहता है।

Question ID : **441009658891**
Option 1 ID : **4410092589878**
Option 2 ID : **4410092589876**
Option 3 ID : **4410092589877**
Option 4 ID : **4410092589875**

Q. What is the main objective of the response phase of disaster management?
18

Ans

✓ 1. Saving lives and reducing economic losses

✗ 2. Building back better infrastructure

✗ 3. Developing awareness campaigns

✗ 4. Creating hazard vulnerability maps

Question ID : **441009658935**
Option 1 ID : **4410092590053**
Option 2 ID : **4410092590051**
Option 3 ID : **4410092590054**
Option 4 ID : **4410092590052**

Q. सौरमंडल में, कुइपर बेल्ट (Kuiper Belt) कहाँ स्थित है?
19

Ans

✗ 1. बृहस्पति की कक्षा से परे

✗ 2. पृथ्वी और शुक्र के बीच

✓ 3. वरुण की कक्षा से परे

✗ 4. मंगल और बृहस्पति के बीच

Question ID : **441009658890**
Option 1 ID : **4410092589872**
Option 2 ID : **4410092589873**
Option 3 ID : **4410092589874**
Option 4 ID : **4410092589871**

Q. बिग बैंग सिद्धांत के अनुसार, आरंभिक ब्रह्मांड में सबसे पहले कौन-से तत्व बने थे?
20

Ans
✗ 1. कार्बन और नाइट्रोजन

✗ 2. ऑक्सीजन और आयरन

✓ 3. हाइड्रोजन, हीलियम और लिथियम के अंश

✗ 4. निकेल और यूरेनियम

Question ID : **441009658950**
Option 1 ID : **4410092590111**
Option 2 ID : **4410092590113**
Option 3 ID : **4410092590112**
Option 4 ID : **4410092590114**

Section : **Discipline8**

Q. भू-आकृतिविज्ञान में 'होर्स्ट (Horst)' क्या है?
1

Ans
✗ 1. भ्रंशन के कारण निर्मित घाटी

✗ 2. दो भ्रंश के बीच नीचे पतित (down-dropped) ब्लॉक

✗ 3. ज्वालामुखी उद्गार से निर्मित पर्वत

✓ 4. दो सामान्य भ्रंश से घिरा उत्थ ब्लॉक

Question ID : **441009658778**
Option 1 ID : **4410092589423**
Option 2 ID : **4410092589424**
Option 3 ID : **4410092589426**
Option 4 ID : **4410092589425**

Q. ट्रेलिस अपवाहतंत्र (Trellis drainage) किस प्रकार की स्थलाकृति में विकसित होता है?
2

Ans
✗ 1. खड़ी ढालों वाले विच्छेदित पठार

✗ 2. अरीय अपवाहतंत्र वाले ज्वालामुखीय पठार

✓ 3. कठोर एवं मृदु चट्टानों के साथ एकांतर रूप से मुड़ी हुई स्थलाकृति

✗ 4. समानांतर अपवाहतंत्र वाले मंद ढाल के भूभाग

Question ID : **441009659046**
Option 1 ID : **4410092590498**
Option 2 ID : **4410092590495**
Option 3 ID : **4410092590497**
Option 4 ID : **4410092590496**

QuickSarkari.com | WhatsApp Channel | Telegram: t.me/quick_sarkari

Q. GIS में, इंटरसेक्ट (INTERSECT) और क्लिप (CLIP) ऑपरेशन के बीच मुख्य अंतर क्या है?
3

Ans
✗ 1. क्लिप केवल तभी कार्य करता है, जब इनपुट और एनालिसिस दोनों लेयर रास्टर डेटा (raster data) हों।

✗ 2. इंटरसेक्ट का उपयोग एनालिसिस लेयर के बिना भी किया जा सकता है।

✗ 3. इंटरसेक्ट संपूर्ण इनपुट लेयर को सदैव अपरिवर्तित रखता है।

✓ 4. इंटरसेक्ट केवल इनपुट और एनालिसिस लेयर के बीच ओवरलैपिंग विशेषताओं को रखता है।

Question ID : **441009658993**
Option 1 ID : **4410092590286**
Option 2 ID : **4410092590285**
Option 3 ID : **4410092590283**
Option 4 ID : **4410092590284**

Q. बिग बैंग सिद्धांत के अनुसार, बिग बैंग घटना लगभग कब घटित हुई थी?
4

Ans
✗ 1. 100 मिलियन वर्ष पूर्व

✗ 2. 10 बिलियन वर्ष पूर्व

✓ 3. 13.7 बिलियन वर्ष पूर्व

✗ 4. 4.6 बिलियन वर्ष पूर्व

Question ID : **441009658951**
Option 1 ID : **4410092590116**
Option 2 ID : **4410092590118**
Option 3 ID : **4410092590115**
Option 4 ID : **4410092590117**

Q. निम्नलिखित में से कौन-सा कथन, राजनीतिक भूगोल के वैश्विक कार्यक्षेत्र को सर्वोत्तम रूप से निरूपित करता है?
5

Ans
✗ 1. आज की राजनीतिक व्यवस्थाएं अधिकांशतः एक-दूसरे से असंबद्ध होती हैं।

✓ 2. राजनीतिक भागीदारी, तेजी से राष्ट्रीय और अंतर्राष्ट्रीय प्रकृति की होती जा रही है।

✗ 3. दूरस्थ क्षेत्रों में रहने वाले लोग, वैश्विक राजनीति से अप्रभावित रहते हैं।

✗ 4. राजनीतिक भूगोल का कार्यक्षेत्र, क्षेत्रीय घटनाओं तक सीमित होता है।

Question ID : **441009658972**
Option 1 ID : **4410092590202**
Option 2 ID : **4410092590200**
Option 3 ID : **4410092590201**
Option 4 ID : **4410092590199**

QuickSarkari.com | WhatsApp Channel | Telegram: t.me/quick_sarkari

Q. भारत के जनसंख्या अध्ययन में, किस वर्ष को 'जनसांख्यिकीय डिवाइड (Demographic Divide)' माना जाता है?
6

Ans
✗ 1. 1953
✗ 2. 1911
✓ 3. 1921
✗ 4. 1951

Question ID : **441009658961**
Option 1 ID : **4410092590158**
Option 2 ID : **4410092590155**
Option 3 ID : **4410092590156**
Option 4 ID : **4410092590157**

Q. निम्नलिखित में से किन देशों को वर्तमान में फ़र्स्ट स्टेज (First Stage) का उदाहरण माना जा सकता है?
7

Ans
✗ 1. स्वीडन और नॉर्वे
✗ 2. दक्षिण अफ्रीका और मिस्र
✗ 3. अर्जेंटीना और ब्राज़ील
✓ 4. सिएरा लियोन और सोमालिया

Question ID : **441009658958**
Option 1 ID : **4410092590144**
Option 2 ID : **4410092590143**
Option 3 ID : **4410092590146**
Option 4 ID : **4410092590145**

Q. पंजाब हिमालय किन नदियों से घिरा हुआ है?
8

Ans
✗ 1. गंगा और यमुना
✗ 2. काली और तीस्ता
✗ 3. सतलुज और काली
✓ 4. सिंधु और सतलुज

Question ID : **441009658966**
Option 1 ID : **4410092590176**
Option 2 ID : **4410092590175**
Option 3 ID : **4410092590178**
Option 4 ID : **4410092590177**

QuickSarkari.com | WhatsApp Channel | Telegram: t.me/quick_sarkari

Q. माल्थस के सिद्धांत में, प्राकृतिक निरोध (positive checks) पद का क्या तात्पर्य है?
9

Ans
✗ 1. जनसंख्या पर नैतिक नियंत्रण

✗ 2. प्रौद्योगिकी प्रगति

✗ 3. बड़े परिवारों के लिए प्रोत्साहन

✓ 4. युद्ध, अकाल और बीमारी जैसे उपाय

Question ID : **441009658960**
Option 1 ID : **4410092590152**
Option 2 ID : **4410092590154**
Option 3 ID : **4410092590151**
Option 4 ID : **4410092590153**

Q. Which of the following best illustrates the interdisciplinary nature of political geography?
10

Ans
✓ 1. Influence of economic transitions and multinational corporations on political activities

✗ 2. Use of regional dialects in local governance

✗ 3. Study of international football tournaments

✗ 4. Study of mountain formation

Question ID : **441009658974**
Option 1 ID : **4410092590209**
Option 2 ID : **4410092590207**
Option 3 ID : **4410092590208**
Option 4 ID : **4410092590210**

Q. भाबर बेल्ट के ठीक दक्षिण में स्थित क्षेत्र निम्नलिखित में से कौन-सा है जो कीचड़दार एवं दलदली (marshy and swampy) परिस्थितियों से युक्त है?
11

Ans
✗ 1. खादर

✗ 2. भांगर

✗ 3. दोआब

✓ 4. तराई

Question ID : **441009658968**
Option 1 ID : **4410092590185**
Option 2 ID : **4410092590183**
Option 3 ID : **4410092590186**
Option 4 ID : **4410092590184**

QuickSarkari.com | WhatsApp Channel | Telegram: t.me/quick_sarkari

Q. किस महाकल्प में महासागरों और महाद्वीपों का निर्माण शुरू हुआ?
12

Ans
✗ 1. कैम्ब्रियन (Cambrian)

✗ 2. जुरैसिक (Jurassic)

✗ 3. प्रोटीरोज़ोइक (Proterozoic)

✓ 4. आर्कियन (Archaean)

Question ID : **441009658952**
Option 1 ID : **4410092590121**
Option 2 ID : **4410092590122**
Option 3 ID : **4410092590119**
Option 4 ID : **4410092590120**

Q. किसी राष्ट्र-राज्य (nation-state) को किस रूप में परिभाषित किया जा सकता है?
13

Ans
✗ 1. एक ऐसा साम्राज्य जिसका बहु क्षेत्रों पर वंशानुगत शासन हो।

✗ 2. एक ऐसा राज्य जिस पर शासन, अंतर्राष्ट्रीय संगठनों द्वारा किया जाता हो।

✓ 3. एक संप्रभु राज्य जिसकी स्पष्ट क्षेत्रीय सीमाएं हों तथा जनसंख्या द्वारा शासित हो।

✗ 4. एक ऐसा राज्य जिस पर शासन किसी निश्चित सीमा के बिना बहु राष्ट्रों द्वारा किया जाता हो।

Question ID : **441009658971**
Option 1 ID : **4410092590195**
Option 2 ID : **4410092590197**
Option 3 ID : **4410092590196**
Option 4 ID : **4410092590198**

Q. भोर घाट और थाल घाट किस पर्वतमाला में स्थित हैं?
14

Ans
✗ 1. अरावली

✗ 2. विंध्य

✓ 3. पश्चिमी घाट

✗ 4. पूर्वी घाट

Question ID : **441009658969**
Option 1 ID : **4410092590188**
Option 2 ID : **4410092590190**
Option 3 ID : **4410092590189**
Option 4 ID : **4410092590187**

QuickSarkari.com | WhatsApp Channel | Telegram: t.me/quick_sarkari

Q. विश्व प्रवासन रिपोर्ट (2024) के अनुसार, निम्नलिखित में से कौन-सा देश भारतीय प्रवासियों के गंतव्य वाले 15 शीर्ष देशों में से एक नहीं है?

Ans
✗ 1. यूएई (UAE)

✓ 2. यूनाइटेड किंगडम (United Kingdom)

✗ 3. सऊदी अरब (Saudi Arabia)

✗ 4. यूएसए (USA)

Question ID : **441009658959**
Option 1 ID : **4410092590150**
Option 2 ID : **4410092590147**
Option 3 ID : **4410092590149**
Option 4 ID : **4410092590148**

Q. One of the main goals of nationalisation is to: 16

Ans
✗ 1. promote global unity

✗ 2. encourage foreign investment

✓ 3. foster emotional commitment to the homeland

✗ 4. erase local identities

Question ID : **441009658973**
Option 1 ID : **4410092590203**
Option 2 ID : **4410092590206**
Option 3 ID : **4410092590204**
Option 4 ID : **4410092590205**

Q. 2001-2011 के दशक के दौरान भारत की जनसंख्या वृद्धि दर कितनी थी? 17

Ans
✗ 1. 19.2%

✓ 2. 17.7%

✗ 3. 21.5%

✗ 4. 15.3%

Question ID : **441009658962**
Option 1 ID : **4410092590162**
Option 2 ID : **4410092590160**
Option 3 ID : **4410092590159**
Option 4 ID : **4410092590161**

QuickSarkari.com | WhatsApp Channel | Telegram: t.me/quick_sarkari

Q. भारत के पूर्वी तटीय मैदान के उत्तरी भाग को क्या कहा जाता है?
18

Ans
- ✗ 1. कोंकण तट
- ✗ 2. मालाबार तट
- ✗ 3. कोरोमंडल तट
- ✓ 4. उत्तरी सरकार

Question ID : **441009658970**
Option 1 ID : **4410092590194**
Option 2 ID : **4410092590191**
Option 3 ID : **4410092590192**
Option 4 ID : **4410092590193**

Q. डाटा स्टोरेज और प्रबंधन में GIS सॉफ्टवेयर का मुख्य कार्य क्या है?
19

Ans
- ✗ 1. उपग्रहों को GPS सिग्नल भेजना
- ✗ 2. कलात्मक मानचित्र बनाना
- ✓ 3. स्थान, संस्थिति और गुण आधारित डेटा व्यवस्थित करना
- ✗ 4. इमेज को ध्वनि में कन्वर्ट करना

Question ID : **441009658992**
Option 1 ID : **4410092590279**
Option 2 ID : **4410092590280**
Option 3 ID : **4410092590281**
Option 4 ID : **4410092590282**

Q. रावी नदी, _____ से निकलती है।
20

Ans
- ✗ 1. मनाली शहर के निकट घाटी
- ✓ 2. कांगड़ा जिले के बारा भंगल क्षेत्र
- ✗ 3. हिमाचल प्रदेश के रोहतांग दर्रे
- ✗ 4. हिमालय के व्यास कुंड

Question ID : **441009658967**
Option 1 ID : **4410092590179**
Option 2 ID : **4410092590181**
Option 3 ID : **4410092590182**
Option 4 ID : **4410092590180**

Section : **Discipline9**

QuickSarkari.com | WhatsApp Channel | Telegram: t.me/quick_sarkari

Q. Which of the following is an example of a socio-natural hazard?
1

Ans
✗ 1. War

✗ 2. Lightning strike

✓ 3. Floods caused by deforestation

✗ 4. Oil spill

Question ID : **441009659032**
Option 1 ID : **4410092590442**
Option 2 ID : **4410092590440**
Option 3 ID : **4410092590441**
Option 4 ID : **4410092590439**

Q. निम्नलिखित में से कौन-सा शहर, स्वर्णिम चतुर्भुज से प्रत्यक्ष रूप से जुड़ा हुआ नहीं है?
2

Ans
✗ 1. दिल्ली

✗ 2. चेन्नई

✓ 3. बेंगलुरु

✗ 4. कोलकाता

Question ID : **441009659019**
Option 1 ID : **4410092590387**
Option 2 ID : **4410092590390**
Option 3 ID : **4410092590388**
Option 4 ID : **4410092590389**

Q. 1981 में भारत द्वारा एरियन रॉकेट (Arian rocket) का उपयोग करके, निम्नलिखित में से कौन-सा उपग्रह (satellite) लांच किया गया था?
3

Ans
✗ 1. भास्कर-I (Bhaskar-I)

✓ 2. एप्पल (APPLE)

✗ 3. रोहिणी (Rohini)

✗ 4. इन्सैट I-बी (INSAT I-B)

Question ID : **441009659021**
Option 1 ID : **4410092590396**
Option 2 ID : **4410092590398**
Option 3 ID : **4410092590395**
Option 4 ID : **4410092590397**

QuickSarkari.com | WhatsApp Channel | Telegram: t.me/quick_sarkari

Q. तटीय प्रवाल भित्ति के रूपांतरण के लिए डार्विन का सिद्धांत एक अन्य कारक था जिसने भू-आकृति विज्ञान में _____ विचारों को प्रवर्तित किया, जिसे बाद में अन्य लोगों द्वारा आगे बढ़ाया गया।
4

Ans

✗ 1. स्टेपिंग (stepping)

✗ 2. कैस्केडिंग (cascading)

✗ 3. रेखीय (linear)

✓ 4. चक्रीय (cyclic)

Question ID : **441009659034**
Option 1 ID : **4410092590450**
Option 2 ID : **4410092590449**
Option 3 ID : **4410092590448**
Option 4 ID : **4410092590447**

Q. सामाजिक-प्राकृतिक (socio-natural) संकट क्या है?
5

Ans

✗ 1. केवल ग्रामीण क्षेत्रों में होने वाले संकट

✓ 2. प्राकृतिक शक्तियों और मानवीय गतिविधियों दोनों से उत्पन्न संकट

✗ 3. संचार के माध्यम से समाज द्वारा उत्पन्न संकट

✗ 4. केवल जलवायु परिवर्तन से उत्पन्न संकट

Question ID : **441009659033**
Option 1 ID : **4410092590443**
Option 2 ID : **4410092590444**
Option 3 ID : **4410092590446**
Option 4 ID : **4410092590445**

Q. सुदूर संवेदन प्रतिबिंबों में ज्यामितीय विरूपण का एक प्रमुख कारण क्या है?
6

Ans

✗ 1. वायुमंडलीय परिस्थितियां

✗ 2. सेंसर अतितापन

✗ 3. अनुचित फाइल फार्मेट

✓ 4. उच्चावच विस्थापन और पृथ्वी का घूर्णन

Question ID : **441009658995**
Option 1 ID : **4410092590292**
Option 2 ID : **4410092590294**
Option 3 ID : **4410092590291**
Option 4 ID : **4410092590293**

QuickSarkari.com | WhatsApp Channel | Telegram: t.me/quick_sarkari

Q. कोच्चि पत्तन, कोच्चि झील के किन दो द्वीपों पर स्थित है?
7

Ans
✔ 1. विलिंगडन द्वीप और वल्लारपदम

✘ 2. रामेश्वरम और धनुषकोडी

✘ 3. एलीफेंटा द्वीप और साल्सेट द्वीप

✘ 4. हैवलॉक और नील द्वीप

Question ID : **441009658877**
Option 1 ID : **4410092589821**
Option 2 ID : **4410092589820**
Option 3 ID : **4410092589822**
Option 4 ID : **4410092589819**

Q. What marks the end of the continental shelf?
8

Ans
✘ 1. Abyssal hill

✔ 2. Shelf break

✘ 3. Continental plain

✘ 4. Oceanic ridge

Question ID : **441009659042**
Option 1 ID : **4410092590480**
Option 2 ID : **4410092590481**
Option 3 ID : **4410092590479**
Option 4 ID : **4410092590482**

Q. निम्नलिखित में से कौन-सा, GIS में स्थानिक और गैर-स्थानिक डेटा के बीच संबंध का सर्वोत्तम रूप से वर्णन करता है?
9

Ans
✘ 1. वे पूर्णतः असंबद्ध होते हैं।

✘ 2. स्थानिक डेटा का उपयोग केवल शहरों के लिए किया जाता है; गैर-स्थानिक डेटा का उपयोग ग्रामीण क्षेत्रों के लिए किया जाता है।

✔ 3. स्थानिक डेटा भौगोलिक संदर्भ प्रदान करता है; गैर-स्थानिक डेटा वर्णनात्मक गुण जोड़ता है।

✘ 4. गैर-स्थानिक डेटा, स्थान को परिभाषित करता है, जबकि स्थानिक डेटा विशेषताओं का वर्णन करता है।

Question ID : **441009658989**
Option 1 ID : **4410092590267**
Option 2 ID : **4410092590270**
Option 3 ID : **4410092590269**
Option 4 ID : **4410092590268**

QuickSarkari.com | WhatsApp Channel | Telegram: t.me/quick_sarkari

Q. विश्व में सबसे ऊंचा ज्वार (highest tides) कहाँ आता है?
10

Ans

✗ 1. बंगाल की खाड़ी, भारत

✓ 2. फंडी की खाड़ी, कनाडा

✗ 3. हडसन की खाड़ी, कनाडा

✗ 4. मेक्सिको की खाड़ी, USA

Question ID : **441009659035**
Option 1 ID : **4410092590453**
Option 2 ID : **4410092590452**
Option 3 ID : **4410092590451**
Option 4 ID : **4410092590454**

Q. किस प्रकार की प्रवाल भित्ति सीधे तट से जुड़ी होती है जिसके बीच कोई विशेष लैगून नहीं होता है?
11

Ans

✗ 1. प्रवाल रोधिका (Barrier reef)

✓ 2. तटीय प्रवालभित्ति (Fringing reef)

✗ 3. शेल्फ भित्ति (Shelf reef)

✗ 4. प्रवालद्वीपवलय भित्ति (Atoll reef)

Question ID : **441009659038**
Option 1 ID : **4410092590463**
Option 2 ID : **4410092590465**
Option 3 ID : **4410092590466**
Option 4 ID : **4410092590464**

Q. निम्नलिखित में से कौन-सा, पॉइंट-इन-पॉलीगॉन ओवरले ऑपरेशन (Point-in-Polygon overlay operation) का प्रत्यक्ष आउटपुट नहीं है?
12

Ans

✗ 1. टू पॉइंट लेयर (two point layers) को मर्ज करना

✗ 2. कई पॉइंट के बीच अंतर्वेशन (interpolate) करना

✓ 3. यह पहचान करना कि कौन-से पॉइंट किस पॉलीगॉन सीमा के अंतर्गत आते हैं

✗ 4. 3D मॉडल बनाना

Question ID : **441009658991**
Option 1 ID : **4410092590278**
Option 2 ID : **4410092590275**
Option 3 ID : **4410092590277**
Option 4 ID : **4410092590276**

Q. थर्मल रिमोट सेंसिंग डेटा (thermal remote sensing data) एकत्र करने के लिए प्रायः किस प्रकार के सेंसर का उपयोग किया जाता है?
13

Ans

✗ 1. रडार सेंसर (Radar sensor)

✗ 2. पुश-ब्रूम सेंसर (Push-broom sensor)

✗ 3. पैसिव माइक्रोवेव सेंसर (Passive microwave sensor)

✓ 4. एक्रॉस-ट्रैक स्कैनिंग सेंसर (Across-track scanning sensor)

Question ID : **441009658994**
Option 1 ID : **4410092590287**
Option 2 ID : **4410092590288**
Option 3 ID : **4410092590290**
Option 4 ID : **4410092590289**

Q. विद्युत चुंबकीय विकिरण में ग्रीक अक्षर λ (लैम्डा) क्या निरूपित करता है?
14

Ans

✗ 1. आयाम

✗ 2. चाल

✓ 3. तरंगदैर्ध्य

✗ 4. आवृत्ति

Question ID : **441009658990**
Option 1 ID : **4410092590272**
Option 2 ID : **4410092590274**
Option 3 ID : **4410092590273**
Option 4 ID : **4410092590271**

Q. स्वतंत्र भारत में स्थापित पहला प्रमुख पत्तन कौन-सा था?
15

Ans

✗ 1. विशाखापत्तनम पत्तन

✓ 2. पारादीप पत्तन

✗ 3. कांडला पत्तन

✗ 4. मुंबई पत्तन

Question ID : **441009658876**
Option 1 ID : **4410092589818**
Option 2 ID : **4410092589816**
Option 3 ID : **4410092589815**
Option 4 ID : **4410092589817**

QuickSarkari.com | WhatsApp Channel | Telegram: t.me/quick_sarkari

Q. सुदूर संवेदन में वायुमंडलीय संशोधन का उद्देश्य क्या है?
16

Ans

✗ 1. भंडारण क्षमता को बढ़ाना

✗ 2. उच्चावच विस्थापन का समायोजन करना

✗ 3. प्रतिबिंब का रंग बदलना

✓ 4. प्रकीर्णन, अवशोषण और पारगम्यता के लिए समायोजन करना

Question ID : **441009658996**
Option 1 ID : **4410092590296**
Option 2 ID : **4410092590298**
Option 3 ID : **4410092590295**
Option 4 ID : **4410092590297**

Q. वितलीय मैदान (abyssal plains) विशिष्ट रूप से कहाँ स्थित होते हैं?
17

Ans

✓ 1. महाद्वीपीय उत्थान और मध्य-महासागरीय कटक के बीच

✗ 2. महाद्वीपीय तटों पर नदी के मुहाने के निकट

✗ 3. तटीय भृगुओं के आधार पर

✗ 4. उथले समुद्रों के अंदर

Question ID : **441009659037**
Option 1 ID : **4410092590460**
Option 2 ID : **4410092590462**
Option 3 ID : **4410092590461**
Option 4 ID : **4410092590459**

Q. चैलेंजर डीप (Challenger Deep) कहाँ स्थित है?
18

Ans

✓ 1. मारियाना ट्रेंच में

✗ 2. फिलीपीन सागर में

✗ 3. अटलांटिक महासागर में

✗ 4. टोंगा ट्रेंच में

Question ID : **441009659036**
Option 1 ID : **4410092590457**
Option 2 ID : **4410092590456**
Option 3 ID : **4410092590458**
Option 4 ID : **4410092590455**

Q. अलास्का और रूस के बीच स्थित उत्तरी प्रशांत महासागर का कौन-सा भाग अपने समृद्ध समुद्री जीवन और महत्वपूर्ण मत्स्यन क्षेत्रों के लिए जाना जाता है?
19

Ans

✗ 1. तस्मान सागर (Tasman Sea)

✗ 2. ओखोटस्क सागर (Okhotsk Sea)

✗ 3. ब्यूफोर्ट सागर (Beaufort Sea)

✓ 4. बेरिंग सागर (Bering Sea)

Question ID : **441009659040**
Option 1 ID : **4410092590473**
Option 2 ID : **4410092590472**
Option 3 ID : **4410092590471**
Option 4 ID : **4410092590474**

Q. आपदाओं से मुख्यतः _____ के कारण आर्थिक हानि होती है।
20

Ans

✗ 1. आयात में वृद्धि

✗ 2. विदेशी निवेश की कमी

✓ 3. संपत्ति और अवसरंचना के विनाश

✗ 4. ईंधन की कीमतों में स्फीति

Question ID : **441009659031**
Option 1 ID : **4410092590438**
Option 2 ID : **4410092590437**
Option 3 ID : **4410092590436**
Option 4 ID : **4410092590435**

Section : **Teaching Methodology**

Q. Which of the following can be considered as a major development task for a child during the first 6 years of life?
1

Ans

✗ 1. Rational thinking

✓ 2. Gender identification

✗ 3. Recognising the personality

✗ 4. Abstract reasoning

Question ID : **441009927268**
Option 1 ID : **4410093663141**
Option 2 ID : **4410093663138**
Option 3 ID : **4410093663140**
Option 4 ID : **4410093663139**

Q. Which of the following characteristics is NOT suitable in a scientific discourse?

Ans

✔ 1. Use of narrative, colloquial and dramatic words

✘ 2. Use of language in an objective way

✘ 3. Use of non-linguistic modes of representation of facts

✘ 4. Use of specialised vocabulary and terms pertaining to the discipline

Question ID : **441009917138**
Option 1 ID : **4410093622848**
Option 2 ID : **4410093622847**
Option 3 ID : **4410093622850**
Option 4 ID : **4410093622849**

Q. स्वयं को पुरुष, महिला या विपरीतलिंगी मानने की भावना को _____ कहा जाता है।

Ans

✘ 1. लैंगिक असमानता (gender inequality)

✘ 2. लैंगिक समानता (gender equality)

✘ 3. लैंगिक मानदंड (gender norms)

✔ 4. लैंगिक पहचान (gender identity)

Question ID : **441009924708**
Option 1 ID : **4410093652973**
Option 2 ID : **4410093652972**
Option 3 ID : **4410093652974**
Option 4 ID : **4410093652971**

Q. निम्नलिखित में से किसके द्वारा निःशक्त जन अधिनियम, 1995 (Person with Disability Act, 1995) को प्रतिस्थापित किया गया?

Ans

✔ 1. दिव्यांगजन अधिकार अधिनियम, 2016

✘ 2. सर्व शिक्षा अभियान

✘ 3. शिक्षा का अधिकार, 2009

✘ 4. विशेष शैक्षिक आवश्यकताएँ एवं दिव्यांगजन अधिनियम, 2001

Question ID : **441009927187**
Option 1 ID : **4410093662814**
Option 2 ID : **4410093662817**
Option 3 ID : **4410093662815**
Option 4 ID : **4410093662816**

Q. निम्नलिखित में से कौन-सा विद्या-शाखा (discipline) से संबंधित है?
5

Ans
✗ 1. अध्ययन की पाठ्यचर्या-आधारित इकाई

✗ 2. पैतृक ज्ञान प्रणाली

✗ 3. परिपक्वता के स्तर पर विचार

✓ 4. अध्ययन का विशिष्ट क्षेत्र

Question ID : **441009924621**
Option 1 ID : **4410093652630**
Option 2 ID : **4410093652628**
Option 3 ID : **4410093652631**
Option 4 ID : **4410093652629**

Q. अधिगम संसाधनों का चयन _____ के आधार पर किया जाना चाहिए।
6

Ans
✓ 1. उद्देश्यों की प्रासंगिकता

✗ 2. केवल उपलब्धता

✗ 3. केवल लोकप्रियता

✗ 4. शिक्षक की प्राथमिकता

Question ID : **441009924391**
Option 1 ID : **4410093651707**
Option 2 ID : **4410093651706**
Option 3 ID : **4410093651704**
Option 4 ID : **4410093651705**

Q. अधिगम के मूल्यांकन के कार्यान्वयन में कौन-सा तत्व केंद्रीय भूमिका निभाता है?
7

Ans
✓ 1. शिक्षार्थी प्रतिपुष्टि (Learner feedback)

✗ 2. अंक गणना (Score calculation)

✗ 3. परीक्षा समय-निर्धारण (Exam scheduling)

✗ 4. परीक्षा कुलानुशासन (Test proctoring)

Question ID : **441009924715**
Option 1 ID : **4410093652999**
Option 2 ID : **4410093653001**
Option 3 ID : **4410093653000**
Option 4 ID : **4410093653002**

QuickSarkari.com | WhatsApp Channel | Telegram: t.me/quick_sarkari

Q. वाइगोत्स्की द्वारा पक्ष-समर्थित शिक्षण रणनीतियों में से किसमें शिक्षक और शिक्षार्थी साझेदारी की भूमिका निभाएंगे और सह-अधिगम प्रदर्शित करेंगे?
8

Ans

✗ 1. चिंतनशील शिक्षण (Reflective teaching)

✗ 2. विभेदित शिक्षण (Differentiated teaching)

✗ 3. दल शिक्षण (Team teaching)

✓ 4. पारस्परिक शिक्षण (Reciprocal teaching)

Question ID : **441009917071**
Option 1 ID : **4410093622571**
Option 2 ID : **4410093622574**
Option 3 ID : **4410093622573**
Option 4 ID : **4410093622572**

Q. निम्नलिखित में से कौन-सा, जेंडर पहचान (gender identity) का उदाहरण है?
9

Ans

✗ 1. किसी कक्षा में पुरुषों और महिलाओं की संख्या

✓ 2. किसी व्यक्ति के लिंग की पहचान करने वाला कानूनी दस्तावेज़

✗ 3. जैविक लिंग की उपेक्षा करते हुए पुरुष या महिला के रूप में आत्म-पहचान

✗ 4. जन्म के समय किसी व्यक्ति का जैविक अभिलक्षण

Question ID : **441009909988**
Option 1 ID : **4410093593908**
Option 2 ID : **4410093593909**
Option 3 ID : **4410093593910**
Option 4 ID : **4410093593907**

Q. According to Vygotsky, in which zone is learning process ever occurring?
10

Ans

✗ 1. Zone of Personal Development

✗ 2. Zone of Cognitive Development

✓ 3. Zone of Proximal Development

✗ 4. Zone of Knowledge Development

Question ID : **441009916978**
Option 1 ID : **4410093622194**
Option 2 ID : **4410093622191**
Option 3 ID : **4410093622192**
Option 4 ID : **4410093622193**

Quick Sarkari

Q. आकलन, मूल्यांकन से भिन्न होता है। आकलन _____ ।
11

Ans
✔ 1. अधिगम में सुधार पर केंद्रित होता है

✘ 2. सदैव श्रेणीकरण का उपयोग करता है

✘ 3. केवल व्यवहार पर केंद्रित होता है

✘ 4. मूल्यांकन से व्यापक होता है

Question ID : **441009924514**
Option 1 ID : **4410093652193**
Option 2 ID : **4410093652195**
Option 3 ID : **4410093652192**
Option 4 ID : **4410093652194**

Q. किसी उद्देश्य की विषय-वस्तु की वैधता का अर्थ है कि वह _____।
12

Ans
✘ 1. जटिल शब्दों का प्रयोग करता है

✔ 2. उद्देश्यपरक पाठ्यचर्या को दर्शाता है

✘ 3. विद्यार्थियों की व्याख्या के लिए खुला है

✘ 4. परीक्षा पत्रों के साथ संरेखित है

Question ID : **441009924255**
Option 1 ID : **4410093651176**
Option 2 ID : **4410093651177**
Option 3 ID : **4410093651179**
Option 4 ID : **4410093651178**

Q. निम्नलिखित में से किसे पाठ्यचर्या का प्रमुख उपागम नहीं माना जाता है?
13

Ans
✘ 1. ब्रॉडफ़ील्ड उपागम (Broadfields approach)

✘ 2. विषय-केंद्रित उपागम (Subject centred approach)

✘ 3. सामाजिक समस्याओं का उपागम (Social problems approach)

✔ 4. भाषा-विषयक उपागम (Linguistic approach)

Question ID : **441009925678**
Option 1 ID : **4410093656828**
Option 2 ID : **4410093656827**
Option 3 ID : **4410093656829**
Option 4 ID : **4410093656826**

QuickSarkari.com | WhatsApp Channel | Telegram: t.me/quick_sarkari

Q. निम्नलिखित में से कौन-सा उद्देश्य मुख्य रूप से अधिगमकर्ताओं में पुन:स्मरण और पहचान कौशल को बढ़ाना है?
14

Ans

✗ 1. अनुप्रयोग के उद्देश्य (Application objectives)

✗ 2. बोध के उद्देश्य (Understanding objectives)

✗ 3. सृजनात्मकता के उद्देश्य (Creativity objectives)

✓ 4. ज्ञान के उद्देश्य (Knowledge objectives)

Question ID : **441009924461**
Option 1 ID : **4410093651994**
Option 2 ID : **4410093651993**
Option 3 ID : **4410093651995**
Option 4 ID : **4410093651992**

Q. निम्नलिखित में से कौन-सा तरीका, शिक्षकों एवं अभिभावकों को बच्चे के अधिगम को सही रूप से निर्देशित करने में सबसे अधिक सहायता करता है?
15

Ans

✗ 1. धार्मिक पैटर्न (Religious patterns)

✗ 2. भोजन का पैटर्न (Food patterns)

✓ 3. विकास पैटर्न (Development patterns)

✗ 4. प्रातःकाल उठने का पैटर्न (Morning wakeup patterns)

Question ID : **441009927242**
Option 1 ID : **4410093663037**
Option 2 ID : **4410093663036**
Option 3 ID : **4410093663034**
Option 4 ID : **4410093663035**

Q. समावेशी एवं समान समतामूलक शिक्षा सुनिश्चित करें और सभी के लिए आजीवन अधिगम के अवसरों को बढ़ावा दें। निम्नलिखित में से कौन-सा प्रलेख (दस्तावेज़) इसका सर्वोत्तम वर्णन करता है?
16

Ans

✗ 1. राष्ट्रीय शिक्षा नीति, 1986

✗ 2. शिक्षा का अधिकार, 2009

✗ 3. राष्ट्रीय शिक्षा नीति, 1968

✓ 4. राष्ट्रीय शिक्षा नीति, 2020

Question ID : **441009927168**
Option 1 ID : **4410093662739**
Option 2 ID : **4410093662741**
Option 3 ID : **4410093662740**
Option 4 ID : **4410093662738**

Q. Which of the following is NOT a sign of an effective learner?
17

Ans
✔ 1. Has a closed mind

✘ 2. Regulates behaviour

✘ 3. Does things creatively

✘ 4. Thinks critically

Question ID : **441009924410**
Option 1 ID : **4410093651788**
Option 2 ID : **4410093651791**
Option 3 ID : **4410093651789**
Option 4 ID : **4410093651790**

Q. संदेश की विशेषताओं के व्यवस्थित, वस्तुनिष्ठ एवं मात्रात्मक विश्लेषण को _____ के रूप में जाना जाता है।
18

Ans
✘ 1. समस्या-समाधान (problem-solving)

✘ 2. शोध-निबंध (dissertation)

✘ 3. वाद (thesis)

✔ 4. विषय-वस्तु विश्लेषण (content analysis)

Question ID : **441009924922**
Option 1 ID : **4410093653824**
Option 2 ID : **4410093653823**
Option 3 ID : **4410093653825**
Option 4 ID : **4410093653822**

Q. निम्नलिखित में से कौन-सा क्षेत्र कला शिक्षा से सबसे अधिक संबंधित है?
19

Ans
✘ 1. विवेचन (Reasoning)

✘ 2. ज्ञान (Knowledge)

✔ 3. भावात्मक (Affective)

✘ 4. समझ (Understanding)

Question ID : **441009927288**
Option 1 ID : **4410093663221**
Option 2 ID : **4410093663219**
Option 3 ID : **4410093663218**
Option 4 ID : **4410093663220**

Q. निम्नलिखित में से कौन-सा बहुअनुशासनिक उपागम का उदाहरण नहीं है?
20

Ans

✗ 1. स्वास्थ्य सेवा (Health care)

✗ 2. सैन्य-उद्योग इंटरफ़ेस (Military-industry interface)

✗ 3. शहरी नियोजन (Urban planning)

✓ 4. शुद्ध गणित (Pure mathematics)

Question ID : **441009924590**
Option 1 ID : **4410093652501**
Option 2 ID : **4410093652503**
Option 3 ID : **4410093652502**
Option 4 ID : **4410093652500**

QuickSarkari

Quick Sarkari

Thank you for studying with QuickSarkari!

Get the latest Sarkari Naukri notifications, admit cards, results, answer keys and free previous-year papers first - follow us on WhatsApp and Telegram.

Visit www.quicksarkari.com

Join our WhatsApp Channel

https://whatsapp.com/channel/0029VaxxbrREquiPoXTWM229

Join our Telegram Channel

https://t.me/quick_sarkari

Share this PDF with your friends preparing for DSSSB exams.