DSSSB PREVIOUS YEAR PAPER WITH ANSWER KEY

DSSSB Vaccinator

24 June 2025 · Shift 1

डीएसएसएसबी वैक्सीनेटर (टीकाकर्ता) – 24 जून 2025, शिफ्ट 1 का प्रश्न पत्र, उत्तर कुंजी सहित

200	120 min	1 / −0.25	EN + HI
Questions / प्रश्न	Duration / समय	Marks per Q / अंक	Language / भाषा

Sections: General intelligence and Reasoning Ability, General Awareness, Arithmetical and Numerical Ability, English Language and Comprehension, Hindi Language and Comprehension, Vaccinator

INSIDE THIS PDF / इस PDF में

Question Paper in English + Hindi with Answer Key (correct option marked in green) + answer table — Page 2–43
प्रश्न पत्र अंग्रेज़ी + हिंदी में, उत्तर कुंजी सहित (सही विकल्प हरे रंग में) + उत्तर तालिका

Official DSSSB Response Sheet with Answer Key (correct option ticked in green) — Page 44–103
आधिकारिक DSSSB रिस्पॉन्स शीट, उत्तर कुंजी सहित (सही विकल्प हरे टिक से)

HOW TO USE THIS PAPER / इस पेपर का उपयोग कैसे करें

1. Attempt the paper first as a timed online mock test (link below).
   पहले नीचे दिए लिंक से इसे टाइमर के साथ ऑनलाइन मॉक टेस्ट के रूप में हल करें।
2. Check your score, section-wise analysis and solutions online.
   ऑनलाइन अपना स्कोर, खंड-वार विश्लेषण और हल देखें।
3. Use this PDF for revision. Correct answers are shown in green.
   दोहराने के लिए इस PDF का उपयोग करें। सही उत्तर हरे रंग में दिए गए हैं।

Attempt this paper as a FREE online mock test
इस पेपर को फ्री ऑनलाइन मॉक टेस्ट के रूप में हल करें – टाइमर, स्कोर और हल के साथ
https://quicksarkari.com/dsssb-vaccinator-24-june-2025-shift-1-mock-test/

All DSSSB Vaccinator papers and mock tests: **quicksarkari.com/dsssb-mock-test/#vaccinator**

Join WhatsApp Channel | Join Telegram Channel

DSSSB Vaccinator – Question Paper (English + Hindi)

DSSSB वैक्सीनेटर (टीकाकर्ता) – प्रश्न पत्र (अंग्रेज़ी + हिंदी)

Exam held on 24 June 2025, Shift 1 · 200 questions · correct answers marked ✔ in green
परीक्षा तिथि 24 जून 2025, शिफ्ट 1 · 200 प्रश्न · सही उत्तर हरे रंग में ✔ से चिह्नित

> The official paper for this shift was in Hindi. The English version of each question is a translation prepared by QuickSarkari; the language-section questions are shown as asked.
> इस शिफ्ट का आधिकारिक प्रश्न पत्र हिंदी में था। प्रत्येक प्रश्न का अंग्रेज़ी संस्करण QuickSarkari द्वारा तैयार किया गया अनुवाद है; भाषा खंड के प्रश्न मूल रूप में दिए गए हैं।

General intelligence and Reasoning Ability

Q.1 Refer to the following letter and symbol series and answer the question that follows. Counting to be done from left to right only.
(Left) J @ # $ G & N € J A N $ X @ £ * @ * U & O P (Right)
How many such symbols are there each of which is immediately preceded by a letter and also immediately followed by a letter?

निम्नलिखित अक्षर और प्रतीक श्रृंखला का संदर्भ लीजिए और नीचे दिए गए प्रश्न का उत्तर दीजिए। गिनती केवल बाएं से दाएं की जानी चाहिए।
(बाएं) J @ # $ G & N € J A N $ X @ £ * @ * U & O P (दाएं)
ऐसे कितने प्रतीक हैं जिनके ठीक पहले एक अक्षर है और ठीक बाद भी एक अक्षर है?

(1) Six / छह
(2) Three / तीन
(3) **Four / चार ✔**
(4) Five / पाँच

Q.2 Select the correct mirror image of the given combination when the mirror is placed at MN as shown.



जब दर्पण को दर्शाए गए अनुसार MN पर रखा जाता है, तो दिए गए संयोजन के सही दर्पण प्रतिबिंब का चयन कीजिए।

(1) 
(2) 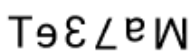
(3) 
(4) 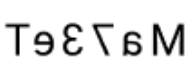 ✔

QuickSarkari.com | WhatsApp Channel | Telegram: t.me/quick_sarkari

Q.3 Following a certain logic, 8 is related to 65. Following the same logic, 11 is related to 122. Following the same logic, to which of the given options is 12 related?
(NOTE: Operations should be performed on the whole numbers, without breaking down the numbers into their constituent digits. E.g. 13 – Operations on 13 such as adding /subtracting /multiplying etc. to 13 can be performed. Breaking down 13 into 1 and 3 and then performing mathematical operations on 1 and 3 is not allowed.)
एक निश्चित तर्क का अनुसरण करते हुए, 8 का संबंध 65 से है। उसी तर्क का अनुसरण करते हुए, 11 का संबंध 122 से है। उसी तर्क का अनुसरण करते हुए, 12 का संबंध दिए गए विकल्पों में से किससे है?
(नोट: संख्याओं को उनके घटक अंकों में तोड़े बिना, संक्रियाएँ पूर्ण संख्याओं पर की जानी चाहिए। उदाहरण के लिए 13 को लीजिए - 13 पर संक्रियाएँ जैसे कि 13 में जोड़ना/घटाना/गुणा करना 13 पर किया जा सकता है। 13 को 1 और 3 में तोड़ना और फिर 1 और 3 पर गणितीय संक्रियाएँ करने की अनुमति नहीं है।)

(1) 145 ✔
(2) 192
(3) 156
(4) 169

Q.4 Based on the English alphabetical order, EIMQ is related to PUZE in a certain way. In the same way, WEMU is related to HQZI. Following the same logic, DOZK is related to which of the following options?
अंग्रेजी वर्णमाला क्रम के आधार पर EIMQ का संबंध एक निश्चित तरीके से PUZE से है। उसी प्रकार, WEMU का संबंध HQZI से है। उसी तर्क का अनुसरण करते हुए, DOZK का संबंध निम्नलिखित में से किस विकल्प से है?

(1) OBMY
(2) OANY
(3) OBNY
(4) OAMY ✔

Q.5 Based on the English alphabetical order, LINK is related to KKLL in a certain way. In the same way, MOST is related to TQQM. Following the same logic, FROG is related to which of the given options?
अंग्रेजी वर्णमाला क्रम के आधार पर एक निश्चित प्रकार से LINK का संबंध KKLL से है। उसी प्रकार, MOST का संबंध TQQM से है। समान तर्क का अनुसरण करते हुए, FROG का संबंध दिए गए विकल्पों में से किससे है?

(1) HORE
(2) GPQF
(3) HPQE
(4) GTMF ✔

Q.6 Refer to the following number and symbol series and answer the question that follows. Counting to be done from left to right only.
(Left) 4 * & @ & * 8 ! 7 @ 9 ^ 2 3 $ 1 8 % 3 ^ 5 1 # 6 7 (Right)
If all the symbols are dropped from the series, which of the following will be seventh from the right?
निम्नलिखित संख्या और प्रतीक श्रृंखला का संदर्भ लीजिए और नीचे दिए गए प्रश्न का उत्तर दीजिए।
गिनती केवल बाएं से दाएं की जानी चाहिए।
(बाएं) 4 * & @ & * 8 ! 7 @ 9 ^ 2 3 $ 1 8 % 3 ^ 5 1 # 6 7 (दाएं)
यदि श्रृंखला से सभी प्रतीकों को हटा दिया जाए, तो निम्नलिखित में से कौन-सा दाएं से सातवें स्थान पर होगा?

(1) 2
(2) 3
(3) 1 ✔
(4) 8

Q.7 Three of the following four letter-cluster pairs are alike in a certain way and thus form a group. Which letter-cluster pair DOES NOT belong to that group?
(Note: The odd letter-cluster pair is not based on the number of consonants/vowels or their position.)
निम्नलिखित चार अक्षर-समूह युग्मों में से तीन एक निश्चित प्रकार से समान हैं और इस तरह से एक ग्रुप बनाते हैं।
कौन-सा अक्षर-समूह युग्म उस ग्रुप से संबंधित नहीं है?
(नोट: असंगत अक्षर-समूह युग्म, व्यंजनों/स्वरों की संख्या या उनकी स्थिति पर आधारित नहीं है।)

(1) GY - IB
(2) OE - QI ✔
(3) AV - CY
(4) MI - OL

Q.8 P, Q, R, S, T, U and V are sitting around a circular table facing the centre. Only three people sit between P and T when counted from the left of P. Only three people sit between V and R when counted from the right of R. S sits to the immediate right of V. U is an immediate neighbour of both R and T. How many people sit between P and V when counted from the right of V?
P, Q, R, S, T, U और V एक गोल मेज के परितः केंद्र की ओर अभिमुख होकर बैठे हैं। P के बाएं से गिने जाने पर P और T के मध्य केवल तीन व्यक्ति बैठे हैं। R के दाएं से गिने जाने पर V और R के मध्य केवल तीन व्यक्ति बैठे हैं। S, V के ठीक दाएं पड़ोस में बैठा है। R और T के दोनों के ठीक पड़ोस में U बैठा है। V के दाएं से गिनने पर, P और V के मध्य कितने व्यक्ति बैठे हैं?

(1) One / एक ✔
(2) Two / दो
(3) Three / तीन
(4) Four / चार

Q.9 Each of D, E, F, G, H, I and P has an interview on a different day of the same week, starting from Monday and ending on Sunday. Only two people have interviews between G and E. Only two people have interviews between E and H. Only two people have interviews between D and P. Only H has an interview after D. I has an interview on some day before F. How many people have interviews between I and F?
D, E, F, G, H, I, और P में से प्रत्येक का साक्षात्कार सोमवार से शुरू होकर रविवार को समाप्त होने वाले एक ही सप्ताह के अलग-अलग दिन होता है। G और E के मध्य केवल दो लोगों का साक्षात्कार है। E और H के मध्य केवल दो लोगों का साक्षात्कार है। D और P के मध्य केवल दो लोगों का साक्षात्कार है। D के बाद केवल H का साक्षात्कार है। I का साक्षात्कार F से पहले किसी दिन है। I और F के मध्य कितने लोगों का साक्षात्कार है?

(1) Three / तीन
(2) One / एक
(3) Four / चार
(4) Two / दो ✔

Q.10 Based on the English alphabetical order, three of the following four letter-cluster pairs are alike in a certain way and thus form a group. Which pair DOES NOT belong to that group?
(Note: The odd letter-cluster pair is not based on the number of consonants/vowels or their position.)
अंग्रेजी वर्णमाला क्रम के आधार पर, निम्नलिखित चार अक्षर-समूह युग्मों में से तीन एक निश्चित तरीके से एकसमान हैं और इस प्रकार एक ग्रुप बनाते हैं। कौन-सा युग्म उस ग्रुप से संबंधित नहीं है?
(नोट: असंगत अक्षर-समूह युग्म, व्यंजनों/स्वरों की संख्या या उनकी स्थिति पर आधारित नहीं है।)

(1) PR - QS
(2) KL - LN ✔
(3) BD - CE
(4) EG - FH

Q.11 If 1 is added to each odd digit of the number 71025468, how many digits will appear more than once in the number thus formed?

यदि संख्या 71025468 के प्रत्येक विषम अंक में 1 जोड़ा जाए, तो इस प्रकार निर्मित संख्या में कितने अंकों की एक से अधिक बार पुनरावृत्ति होगी?

(1) Three / तीन ✔

(2) None / एक भी नहीं

(3) Two / दो

(4) One / एक

Q.12 In a certain code language, 'ROTE' is coded as '3719' and 'TOUR' is coded as '1237'. What is the code for 'U' in the given code language?

एक निश्चित कूट भाषा में, 'ROTE' को '3719' के रूप में कूटबद्ध किया गया है और 'TOUR' को '1237' के रूप में कूटबद्ध किया गया है। दी गई कूट भाषा में 'U' के लिए कूट क्या है?

(1) 1

(2) 2 ✔

(3) 7

(4) 3

Q.13 If 1 is added to each even digit and 2 is subtracted from each odd digit of the number 2543678, what will be the sum of the second digit from the left and the second digit from the right?

यदि संख्या 2543678 के प्रत्येक सम अंक में 1 जोड़ा जाता है तथा प्रत्येक विषम अंक में से 2 घटाया जाता है, तो बाईं ओर से दूसरे अंक तथा दाईं ओर से दूसरे अंक का योगफल कितना होगा?

(1) 6

(2) 9

(3) 4

(4) 8 ✔

Q.14 What should come in place of the question mark (?) in the given series?
345 290 238 189 143 ?

दी गई श्रृंखला में प्रश्न चिह्न (?) के स्थान पर क्या आना चाहिए?
345 290 238 189 143 ?

(1) 116

(2) 100 ✔

(3) 126

(4) 91

Q.15 In a certain code language, 'EURO' is coded as '1375' and 'SALE' is coded as '2438'. What is the code for 'E' in the given code language?

एक निश्चित कूट भाषा में, 'EURO' को '1375' के रूप में कूटबद्ध किया जाता है और 'SALE' को '2438' के रूप में कूटबद्ध किया जाता है। दी गई कूट भाषा में 'E' के लिए कूट क्या है?

(1) 7

(2) 8

(3) 3 ✔

(4) 2

Q.16 If each letter of the word 'PECTORALS' is arranged in English alphabetical order, the position of how many letters will remain unchanged?

यदि शब्द 'PECTORALS' के प्रत्येक अक्षर को अंग्रेजी वर्णमाला क्रम में व्यवस्थित किया जाए, तो कितने अक्षरों की स्थिति अपरिवर्तित रहेगी?

(1) Two / दो

(2) Three / तीन

(3) None / किसी की भी नहीं

(4) One / एक ✔

Q.17 Read the given statements and conclusions carefully. Assuming that the information given in the statements is true, even if it appears to be at variance with commonly known facts, decide which of the conclusions logically follow(s) from the statements.

Statements:

No pencil is a violin.

Some sticks are pencils.

Conclusions:

(I) No violin is a stick.

(II) Some sticks are violins.

दिए गए कथनों और निष्कर्षों को ध्यान से पढ़ें। कथनों में दी गई जानकारी को सत्य मानते हुए, भले ही वह सामान्य रूप से ज्ञात तथ्यों से भिन्न प्रतीत हो, निर्धारित करें कि कौन-से निष्कर्ष दिए गए कथनों का तार्किक रूप से अनुसरण करते हैं।

कथन:

कोई पेंसिल, वायलिन नहीं है।

कुछ छड़ियाँ, पेंसिल हैं।

निष्कर्ष:

(I) कोई वायलिन, छड़ियाँ नहीं हैं।

(II) कुछ छड़ियाँ, वायलिन हैं।

(1) Both conclusions (I) and (II) follow. / निष्कर्ष (I) और (II) दोनों अनुसरण करते हैं।

(2) Only conclusion (II) follows. / केवल निष्कर्ष (II) अनुसरण करता है।

(3) Only conclusion (I) follows. / केवल निष्कर्ष (I) अनुसरण करता है।

(4) Neither conclusion (I) nor (II) follows. / न तो निष्कर्ष (I) और न ही (II) अनुसरण करता है। ✔

Q.18 O, P, R, S, Y and Z live on six different floors of the same building. The lowermost floor of the building is numbered 1, the floor above it is numbered 2 and so on till the topmost floor is numbered 6. Y lives on floor number 5. O lives on a floor above Y. Only Z lives below S. P lives on an even-numbered floor. How many people live below R?

O, P, R, S, Y और Z एक ही इमारत के छह अलग-अलग तलों पर रहते हैं। इमारत में सबसे निचले तल का क्रमांक 1 है, उसके ऊपर के तल का क्रमांक 2 है और इसी तरह सबसे ऊपर के तल का क्रमांक 6 है। Y तल क्रमांक 5 पर रहता है। O, Y के ऊपर किसी तल पर रहता है। S के नीचे केवल Z रहता है। P सम संख्या वाले तल पर रहता है। R के नीचे कितने लोग रहते हैं?

(1) One / एक

(2) Three / तीन

(3) Two / दो ✔

(4) Four / चार

Q.19 In a certain code language, P # Q means 'P is the wife of Q', P @ Q means 'P is the father of Q', P + Q means 'P is the sister of Q', and P − Q means 'P is the brother of Q'.
Based on the above, if 'E − F + G # Z @ Q', then how is E related to Q?

एक निश्चित कूट भाषा में, P # Q का अर्थ है कि 'P, Q की पत्नी है', P @ Q का अर्थ है कि 'P, Q का पिता है', P + Q का अर्थ है कि 'P, Q की बहन है', और P − Q का अर्थ है कि 'P, Q का भाई है'।
उपरोक्त के आधार पर, यदि 'E − F + G # Z @ Q' है, तो E का Q से क्या संबंध है?

(1) Mother's brother / माता का भाई ✔
(2) Mother's father / माता का पिता
(3) Mother's sister / माता की बहन
(4) Mother's mother / माता की माता

Q.20 P, Q, R, S, T, U and V are sitting around a circular table facing the centre. Only one person sits between P and R when counted from the left of R. V sits third to the right of Q. T sits third to the left of U. V sits to the immediate right of T. S is not an immediate neighbour of T. How many people sit between Q and S when counted from the right of Q?

P, Q, R, S, T, U और V एक गोल मेज के परितः केंद्र की ओर अभिमुख होकर बैठे हैं। R के बाएं से गिनने पर P और R के बीच केवल एक व्यक्ति बैठा है। V, Q के दाएं तीसरे स्थान पर बैठा है। T, U के बाएं तीसरे स्थान पर बैठा है। V, T के ठीक दाएं पड़ोस में बैठा है। S, T का निकटतम पड़ोसी नहीं है। Q के दाएं से गिनने पर Q और S के बीच कितने व्यक्ति बैठे हैं?

(1) Two / दो
(2) One / एक
(3) Four / चार
(4) Three / तीन ✔

General Awareness

Q.21 As per information available till 30 October 2024, who was elected as the President of the International Court of Justice?

30 अक्टूबर 2024 तक प्राप्त जानकारी के अनुसार, अंतर्राष्ट्रीय न्यायालय के अध्यक्ष के रूप में किसे चुना गया?

(1) Judge Peter Tomka / न्यायाधीश पीटर टॉमका (Judge Peter Tomka)
(2) Judge Nawaf Salam / न्यायाधीश नवाफ सलाम (Judge Nawaf Salam) ✔
(3) Judge Roberto Caldas / न्यायाधीश रॉबर्टो कैलदास (Judge Roberto Caldas)
(4) Judge Abdulqawi Ahmed Yusuf / न्यायाधीश अब्दुलकावी अहमद यूसुफ (Judge Abdulqawi Ahmed Yusuf)

Q.22 During reproduction, which part of the cell forms a new organism?

प्रजनन के दौरान, कोशिका का कौन-सा भाग एक नए जीव का निर्माण करता है?

(1) DNA / डी.एन.ए.
(2) Zygote / युग्मनज ✔
(3) Amniotic sac / उल्वीय कोश
(4) Chromosome / गुणसूत्र

Q.23 In which year was the great tribal leader Veer Lakhan Nayak, who challenged the British, hanged?

अंग्रेजों को ललकारने वाले महान आदिवासी नेता वीर लाखन नायक को किस वर्ष फाँसी दी गई थी?

(1) 1941
(2) 1942
(3) 1943 ✔
(4) 1940

Q.24 In which state are the Kangra and Kullu valleys located?

कांगड़ा एवं कुल्लू घाटियाँ किस राज्य में स्थित हैं?

(1) West Bengal / पश्चिम बंगाल

(2) Arunachal Pradesh / अरुणाचल प्रदेश

(3) Sikkim / सिक्किम

(4) **Himachal Pradesh / हिमाचल प्रदेश ✔**

Q.25 What type of force is transmitted through a string, rope, cable or wire when it is pulled tight from one end?

किसी डोरी, रस्सी, केबल या तार को एक सिरे से कस कर खींचने पर उसमें किस प्रकार का बल संचारित होता है?

(1) Air resistance force / वायु प्रतिरोध बल

(2) Friction force / घर्षण बल

(3) Applied force / अनुप्रयुक्त बल

(4) **Tension force / तनाव बल ✔**

Q.26 Consider the following statements.

1. He is the first Indian wrestler to achieve the World No. 1 ranking in any category.
2. He is the first Indian to win four World Championship medals.
3. He won a bronze medal at the Tokyo 2020 Olympics while recovering from a knee injury.

These statements describe which of the following personalities?

निम्नलिखित कथनों पर विचार कीजिए।

1. वह किसी भी वर्ग में विश्व नंबर 1 रैंक प्राप्त करने वाले पहले भारतीय पहलवान हैं।
2. वह चार विश्व चैम्पियनशिप पदक जीतने वाले पहले भारतीय हैं।
3. घुटने की चोट से उबरने के दौरान उन्होंने टोक्यो 2020 ओलंपिक में कांस्य पदक जीता।

ये कथन निम्नलिखित में से किस व्यक्तित्व का वर्णन करते हैं?

(1) Yogeshwar Dutt / योगेश्वर दत्त

(2) Vinesh Phogat / विनेश फोगाट

(3) **Bajrang Punia / बजरंग पुनिया ✔**

(4) Sushil Kumar / सुशील कुमार

Q.27 Articles 124 to 147 of the Indian Constitution deal with the composition and functions of the _____ of India.

भारतीय संविधान के अनुच्छेद 124 से 147 तक में भारत के _____ की संरचना एवं कार्यों का उल्लेख किया गया है।

(1) **Supreme Court / सुप्रीम कोर्ट ✔**

(2) Reserve Bank / रिजर्व बैंक

(3) Finance Commission / वित्त आयोग

(4) Election Commission / निर्वाचन आयोग

Q.28 In the context of agriculture in India, what is 'Pamlou'?

भारत में कृषि के संदर्भ में, 'पामलू' क्या है?

(1) Name of a local tool / स्थानीय उपकरण का नाम

(2) Name of a variety of wheat / गेहूँ की एक किस्म का नाम

(3) Name of a local irrigation system / स्थानीय सिंचाई प्रणाली का नाम

(4) **Name of slash and burn agriculture / स्लैश एंड बर्न कृषि का नाम ✔**

Q.29 What is the period of the financial year in India?

भारत में वित्तीय वर्ष की अवधि क्या होती है?

(1) 1 January to 31 December / 1 जनवरी से 31 दिसंबर

(2) 1 June to 31 May / 1 जून से 31 मई

(3) **1 April to 31 March / 1 अप्रैल से 31 मार्च ✔**

(4) 1 July to 30 June / 1 जुलाई से 30 जून

Q.30 What is the difference between a cheque and cash?

चेक एवं नकदी में क्या अंतर है?

(1) There is no difference between the two. / दोनों में कोई अंतर नहीं है।

(2) A cheque is a physical currency, whereas cash is digital. / चेक एक भौतिक मुद्रा है, जबकि नकदी डिजिटल है।

(3) A cheque earns interest, but cash does not. / चेक पर ब्याज मिलता है, लेकिन नकदी पर नहीं।

(4) **A cheque is an instruction given to a bank, whereas cash is money in hand. / चेक बैंक को दिया गया निर्देश होता है, जबकि नकदी हाथ में मौजूद धन होता है। ✔**

Q.31 Which monument in Delhi served as the residence of the Mughal emperors for more than 200 years?

दिल्ली में कौन-सा स्मारक 200 वर्षों से अधिक समय तक मुगल सम्राटों के निवास के रूप में उपयोग किया जाता रहा?

(1) **Red Fort / लाल किला ✔**

(2) Humayun's Tomb / हुमायूँ का मकबरा

(3) India Gate / इंडिया गेट

(4) Qutub Minar / कुतुब मीनार

Q.32 The feature of 'Procedure for amendment of the Constitution' in the Indian Constitution has been borrowed from _____.

भारतीय संविधान में 'संविधान संशोधन की प्रक्रिया' की विशेषता _____ से ली गई है।

(1) Germany / जर्मनी

(2) **South Africa / दक्षिण अफ्रीका ✔**

(3) United States of America / संयुक्त राज्य अमेरिका

(4) France / फ्रांस

Q.33 In which state is the Chandaka Wildlife Sanctuary located?

चंदका वन्यजीव अभयारण्य किस राज्य में स्थित है?

(1) Maharashtra / महाराष्ट्र

(2) Gujarat / गुजरात

(3) **Odisha / ओडिशा ✔**

(4) Bihar / बिहार

Q.34 Consider the following statements regarding the 'NITI for States' platform.
1. This platform has been developed by NITI Aayog to provide data-driven information to State Governments.
2. It covers 10 sectors and two cross-cutting themes with real-time updates.
3. These sectors include agriculture, education, health and tourism, and also include discussion on gender and climate change.
Which of the following statement(s) is/are correct?
'राज्यों के लिए नीति (NITI for States)' मंच के संबंध में निम्नलिखित कथनों पर विचार कीजिए।
1. यह मंच नीति आयोग द्वारा राज्य सरकारों के लिए डेटा-संचालित सूचना प्रदान करने के लिए विकसित किया गया है।
2. यह रियल-टाइम अपडेट के साथ 10 क्षेत्रों और दो क्रॉस-कटिंग थीम को कवर करता है।
3. इन क्षेत्रों में कृषि, शिक्षा, स्वास्थ्य एवं पर्यटन शामिल हैं, तथा लिंग एवं जलवायु परिवर्तन पर भी चर्चा शामिल है।
निम्नलिखित में से कौन-सा/से कथन सही है/हैं?

(1) 1, 2 and 3 / 1, 2 और 3 ✔
(2) Only 1 and 2 / केवल 1 और 2
(3) Only 2 and 3 / केवल 2 और 3
(4) Only 1 / केवल 1

Q.35 Which novel is considered to be the first Indian novel written in English?
किस उपन्यास को अंग्रेजी में लिखा गया पहला भारतीय उपन्यास माना जाता है?

(1) Rajmohan's Wife / राजमोहन्स वाइफ (Rajmohan's Wife) ✔
(2) Untouchable / अनटचेबल (Untouchable)
(3) Kanthapura / कंठपुरा (Kanthapura)
(4) The Guide / द गाइड (The Guide)

Q.36 Which of the following surfaces will reflect most of the light falling on it?
निम्नलिखित में से कौन-सा पृष्ठ, उस पर पड़ने वाले प्रकाश के अधिकांश भाग को परावर्तित करेगा?

(1) Concrete / कंक्रीट
(2) Mirror / दर्पण ✔
(3) Wood / लकड़ी
(4) Paper / कागज़

Q.37 Which of the following is the newest (in terms of formation) Union Territory of India?
निम्नलिखित में से कौन-सा, भारत का सबसे नवीनतम (गठन के संदर्भ में) केंद्र शासित प्रदेश है?

(1) Ladakh / लद्दाख ✔
(2) Puducherry / पुदुचेरी
(3) Chandigarh / चंडीगढ़
(4) Daman and Diu / दमन एवं दीव

Q.38 In September 2024, the Central Government launched the Bhu-Neer portal for the management of which of the following?
सितंबर 2024 में, केंद्र सरकार ने निम्नलिखित मे से किसके प्रबंधन के लिए भू-नीर पोर्टल लॉन्च किया?

(1) Air quality monitoring / वायु गुणवत्ता निगरानी
(2) Groundwater extraction permits / भूजल निकासी परमिट ✔
(3) Water conservation / जल संरक्षण
(4) Forest resource management / वन संसाधन प्रबंधन

Q.39 In which year did Gandhiji announce his intention to lead a march to break the Salt Law?
गांधीजी ने किस वर्ष नमक कानून तोड़ने के लिए एक मार्च का नेतृत्व करने के अपने इरादे की घोषणा की थी?

(1) 1932
(2) 1933
(3) 1931
(4) **1930** ✔

Q.40 An edible green alga commonly known as sea lettuce belongs to which of the following algal genera?
एक खाद्य हरित शैवाल जिसे सामान्यतः समुद्री सलाद के रूप में जाना जाता है, निम्नलिखित में से किस शैवाल जीनस से बना है?

(1) **Ulva / अल्वा (Ulva)** ✔
(2) Laminaria / लैमिनैरिया (Laminaria)
(3) Chara / कैरा (Chara)
(4) Chlorella / क्लोरेला (Chlorella)

Arithmetical and Numerical Ability

Q.41 A shopkeeper marks the price of a fan 30% above its cost price and allows a discount of 20% on that marked price. If he makes a profit of ₹104, what is the marked price (in ₹) of the fan?
एक दुकानदार एक पंखे की कीमत उसके क्रय मूल्य से 30% अधिक अंकित करता है और उस अंकित मूल्य पर 20% की छूट देता है। यदि उसे ₹104 का लाभ होता है, तो पंखे का अंकित मूल्य (₹ में) कितना है?

(1) 3,306
(2) 3,603
(3) 3,434
(4) **3,380** ✔

Q.42 Three numbers are in the ratio 8 : 15 : 19, and their LCM is 2280. What will be their HCF?
तीन संख्याएँ 8 : 15 : 19 के अनुपात में हैं, और उनका LCM, 2280 है। उनका HCF कितना होगा?

(1) **1** ✔
(2) 30
(3) 48
(4) 47

Q.43 Divya took a loan for 6 years at the rate of 5% per annum simple interest. If the total interest paid was ₹1,230, what was the principal (in ₹)?
दिव्या ने 5% वार्षिक साधारण ब्याज की दर पर 6 वर्ष के लिए ऋण लिया। यदि भुगतान किया गया कुल ब्याज ₹1,230 था, तो मूलधन (₹ में) कितना था?

(1) ₹4,150
(2) **₹4,100** ✔
(3) ₹4,200
(4) ₹4,250

Q.44 X, Y and Z invested amounts in the ratio 18 : 3 : 37. If at the end of the year they earned a total profit of ₹4,060, what is the difference between the shares of Y and Z?

X, Y और Z ने 18 : 3 : 37 के अनुपात में धनराशि निवेश की। यदि वर्ष के अंत में उन्होंने कुल ₹4,060 का लाभ अर्जित किया, तो Y और Z के हिस्से के बीच अंतर कितना है?

(1) ₹2,434

(2) **₹2,380 ✔**

(3) ₹2,332

(4) ₹2,359

Q.45 A person goes from place A to B at a speed of 12 km/hr and returns from B to A by the same route at a speed of 10 km/hr. What is the average speed (in km/hr) for the entire journey?

एक व्यक्ति स्थान A से B तक 12 km/hr की चाल से जाता है और उसी मार्ग का उपयोग करते हुए B से A तक 10 km/hr की चाल से वापस लौटता है। पूरी यात्रा के लिए औसत चाल (km/hr में) कितनी है?

(1) 14 10/11

(2) 12 10/11

(3) **10 10/11 ✔**

(4) 5 10/11

Q.46 Which of the following numbers is divisible by 84?

निम्नलिखित में से कौन-सी संख्या 84 से विभाज्य है?

(1) 590099

(2) 593022

(3) **591948 ✔**

(4) 591673

Q.47 A school has four sections I, II, III and IV of class X students.
The given table shows the number of students who obtained grades A, B and C in the annual examination. Refer to the table and answer the question that follows.
Grade Number of students Section I Section II Section III Section IV A 21 25 27 15 B 15 10 13 22 C 18 8 12 9
What is the ratio of the combined number of students who obtained grades A and C from sections I, II and III to the combined number of students who obtained grade B from sections I, II, III and IV?

एक स्कूल में कक्षा X के छात्रों के चार सेक्शन I, II, III और IV हैं।
दी गई तालिका वार्षिक परीक्षा में ग्रेड A, B और C प्राप्त करने वाले छात्रों की संख्या दर्शाती है। तालिका का संदर्भ लें और निम्नलिखित प्रश्न का उत्तर दें।
ग्रेड छात्रों की संख्या सेक्शन I सेक्शन II सेक्शन III सेक्शन IV A 21 25 27 15 B 15 10 13 22 C 18 8 12 9 सेक्शन I, II और III से ग्रेड A और C प्राप्त करने वाले छात्रों की संयुक्त संख्या का, सेक्शन I, II, III और IV से ग्रेड B प्राप्त करने वाले छात्रों की संयुक्त संख्या से अनुपात क्या है?

(1) **37 : 20 ✔**

(2) 20 : 37

(3) 20 : 17

(4) 17 : 20

Q.48 The price of a washing machine is 25% less than the price of a TV. If the price of the washing machine increases by 74% and the price of the TV decreases by 80%, what is the percentage change in the total price of 7 washing machines and 3 TVs?

एक वॉशिंग मशीन की कीमत एक TV की कीमत से 25% कम है। यदि वॉशिंग मशीन की कीमत 74% बढ़ जाती है और TV की कीमत 80% कम हो जाती है, तो 7 वॉशिंग मशीन और 3 TV की कुल कीमत में प्रतिशत परिवर्तन क्या है?

(1) 15% decrease / 15% की कमी

(2) 18% increase / 18% की वृद्धि ✔

(3) 19% decrease / 19% की कमी

(4) 17% increase / 17% की वृद्धि

Q.49 Anil has ₹1,680. He divided it between his sons Ashok and Raj and asked them to invest it at 10% per annum interest compounded annually. It was observed that Ashok and Raj received equal amounts after 15 and 16 years, respectively. How much amount (in ₹) did Anil give to Ashok?

अनिल के पास ₹1,680 हैं। उसने इसे अपने पुत्रों अशोक और राज में बाँट दिया और उन्हें इसे वार्षिक रूप से संयोजित होने वाले 10% वार्षिक ब्याज की दर से निवेश करने को कहा। यह देखा गया कि अशोक और राज को क्रमशः 15 और 16 वर्ष बाद समान धनराशि प्राप्त हुई। अनिल ने अशोक को कितनी धनराशि (₹ में) दी थी?

(1) 730

(2) 880 ✔

(3) 800

(4) 900

Q.50 Simplify 23 − [4 − {7 − (3 + 5)}].

23 − [4 − {7 − (3 + 5)}] को सरल करें।

(1) 25

(2) 18 ✔

(3) 15

(4) 22

Q.51 A can do a piece of work in 5 hours; B and C together can do it in 4 hours, while A and C together can do it in 3 hours. How much time will B alone take to complete the work?

hours

A किसी कार्य को 5 घंटे में कर सकता है; B और C मिलकर इसे 4 घंटे में कर सकते हैं, जबकि A और C मिलकर इसे 3 घंटे में कर सकते हैं। B अकेले इस कार्य को पूरा करने में कितना समय लेगा?

घंटे

(1) 7 8/9

(2) 6 4/5 hours / 6 4/5 घंटे

(3) 9 3/8 hours / 9 3/8 घंटे

(4) 8 4/7 hours / 8 4/7 घंटे ✔

QuickSarkari.com | WhatsApp Channel | Telegram: t.me/quick_sarkari

Q.52 Shiva can do a piece of work in 15 days. Shankar is 25% more efficient than Shiva. Find the number of days taken by Shankar to complete the same work.

शिवा किसी कार्य को 15 दिनों में कर सकता है। शंकर, शिवा से 25% अधिक कार्यकुशल है। शंकर द्वारा उसी कार्य को पूरा करने में लिए गए दिनों की संख्या ज्ञात कीजिए।

(1) 16 days / 16 दिन

(2) 14 days / 14 दिन

(3) **12 days / 12 दिन ✔**

(4) 10 days / 10 दिन

Q.53 An error of 1% in excess is made while measuring the side of a cubical box. Find the percentage error (rounded off to two decimal places) in the calculated volume of the box.

किसी घनाकार बॉक्स की भुजा मापते समय 1% की अतिरिक्त त्रुटि हुई है। बॉक्स के परिकलित आयतन में त्रुटि का प्रतिशत (दशमलव के दो स्थानों तक पूर्णांकित) ज्ञात कीजिए।

(1) 4.04%

(2) 1.01%

(3) 2.02%

(4) **3.03% ✔**

Q.54 Simplify the following expression.

$(a^5 \times b^{-5} \times c^5) \times (a^{-10} \times b^{-6} \times c^6)$

निम्नलिखित व्यंजक को सरल कीजिए।

$(a^5 \times b^{-5} \times c^5) \times (a^{-10} \times b^{-6} \times c^6)$

(1) $a^{-8} \times b^6 \times c^{10}$

(2) $\mathbf{a^{-5} \times b^{-11} \times c^{11}}$ **✔**

(3) $a^{-8} \times b^{-10} \times c^{-5}$

(4) $a^{-10} \times b^1 \times c^5$

Q.55 If $17 \times 2 \times 882 \div \sqrt{2401} = y + 694$, then find the value of y.

यदि $17 \times 2 \times 882 \div \sqrt{2401} = y + 694$ है, तो y का मान ज्ञात कीजिए।

(1) −78

(2) **−82 ✔**

(3) −79

(4) −84

Q.56 Mahesh bought 52 books for ₹1,125 from one shop and 47 books for ₹9,10 from another shop. Find the average price paid per book (in ₹, rounded off to two decimal places).

महेश ने एक दुकान से ₹1,125 में 52 किताबें खरीदीं और दूसरी दुकान से ₹9,10 में 47 किताबें खरीदीं। प्रति किताब भुगतान किया गया औसत मूल्य (₹ में, दशमलव के दो स्थानों तक पूर्णांकित) ज्ञात कीजिए।

(1) ₹22.56

(2) **₹20.56 ✔**

(3) ₹23.56

(4) ₹21.56

QuickSarkari.com | WhatsApp Channel | Telegram: t.me/quick_sarkari

Q.57 A shopkeeper expects a profit of 12.5% on his cost price. If his sales in a week were ₹1,01,250, what was his profit?

कोई दुकानदार अपने क्रय मूल्य पर 12.5% लाभ की अपेक्षा करता है। यदि एक सप्ताह में उसकी वस्तु बिक्री ₹1,01,250 थी, तो उसका लाभ कितना था?

(1) ₹9,750

(2) ₹9,000

(3) **₹11,250 ✔**

(4) ₹10,250

Q.58 Find the mean proportional of 40 and 90.

40 और 90 का माध्यानुपाती ज्ञात कीजिए।

(1) 62

(2) 61

(3) **60 ✔**

(4) 58

Q.59 Water flows at the rate of 8 metres per second through a circular pipe whose internal diameter is 2 cm into a cylindrical tank with a base radius of 100 cm. By how much will the water level rise in 15 minutes?

एक वृत्ताकार पाइप जिसका आंतरिक व्यास 2 cm है, के माध्यम से जल 8 मीटर प्रति सेकंड की दर से, 100 cm आधार त्रिज्या वाले एक बेलनाकार टैंक में प्रवाहित होता है। 15 मिनट में जल का स्तर कितना बढ़ जाएगा?

(1) 81 cm

(2) 70 cm

(3) **72 cm ✔**

(4) 64 cm

Q.60 The product of two numbers is 6962 and their HCF is 59. Find their LCM.

दो संख्याओं का गुणनफल 6962 है तथा उनका म.स.प. (HCF) 59 है। उनका ल.स.प. (LCM) ज्ञात कीजिए।

(1) 110

(2) 112

(3) 121

(4) **118 ✔**

English Language and Comprehension

Q.61 Select the most appropriate option to fill in the blank.

They worked _____ to meet the deadline.

(1) very hardly

(2) hardly

(3) **hard ✔**

(4) more hard

Q.62 Select the most appropriate option to fill in the blank.
He is the _____ employee in the company.

(1) wisest and honest
(2) wiser and honest
(3) most wise and honest
(4) **wisest and the most honest ✔**

Q.63 Select the most appropriate one-word substitute for the underlined group of words in the given sentence.
She dreaded to visit her late aunt as she was quite a woman who nagged and argued noisily to get what she had desired.

(1) virtuoso
(2) stoic
(3) **termagant ✔**
(4) polyglot

Q.64 Select the most appropriate option to fill in the blank.
She went to ___ supermarket to buy some fruits.

(1) No article required
(2) a
(3) an
(4) **the ✔**

Q.65 Select the most appropriate option to fill in the blank.
They ran _____ enough to catch the bus.

(1) fastly
(2) faster
(3) **fast ✔**
(4) very fastly

Q.66 Parts of a sentence are given below. While the first part is in the correct place, the remaining parts (labelled A, B, C and D) are jumbled up. Arrange the parts in the correct order to form a meaningful and coherent sentence.
The colorful spectrum of
A. musical taste, shaped by cultural milieu and
B. uniquely within the labyrinth of the human psyche
C. personal proclivities, reflects an intricate interplay
D. of rhythm, melody, and emotion that resonates

(1) **ACDB ✔**
(2) CBDA
(3) BDCA
(4) CDAB

Quick Sarkari

Q.67 Parts of a sentence are given below. While the first part is in the correct place, the remaining parts (labelled P, Q, R and S) are jumbled up. Arrange the parts in the correct order to form a meaningful and coherent sentence.
Norah Magero designed a refrigerator / to help them keep their milk fresh (P) /asked her to come up with something (Q) / on the way to the market (R) / after some local diary farmers (S)

(1) SQPR ✔
(2) PQSR
(3) PSRQ
(4) QPSR

Q.68 Select the correctly spelt word to fill in the blank.
His speech reflected deep _____ on the nature of solitude and survival.

(1) contemplation ✔
(2) contempletion
(3) conntemplation
(4) contimplation

Q.69 Select the most appropriate option to fill in the blank.
After building a shelter, Crusoe felt more _____ about staying on the island.

(1) hungry
(2) anxious
(3) distant
(4) comfortable ✔

Q.70 Select the most appropriate synonym of the underlined word in the given sentence. The manager gave a concise summary of the project.

(1) Predictable
(2) Elaborate
(3) Backward
(4) Brief ✔

Q.71 Select the most appropriate meaning of the given idiom.
Be skating on thin ice

(1) To carefully follow rules and avoid trouble
(2) To make steady progress towards success
(3) To do something risky or dangerous ✔
(4) To test new ideas in a safe and controlled way

Q.72 Select the correctly spelt word to fill in the blank.
The committee approved the _____ for the new project.

(1) budjet
(2) budget ✔
(3) budjete
(4) budgett

QuickSarkari.com | WhatsApp Channel | Telegram: t.me/quick_sarkari

Q.73 Select the most appropriate ANTONYM of the given word.
Paramount

(1) Lucid
(2) Cryptic
(3) Foremost
(4) **Trivial ✔**

Q.74 Select the most appropriate one-word substitute for the underlined group of words in the given sentence.
His brother is a/an person who blindly believes in his superiority over others and often demeans the women in the family.

(1) dogmatic
(2) altruist
(3) **chauvinist ✔**
(4) egalitarian

Q.75 Select the most appropriate meaning of the given proverb.
Don't count your chickens before they hatch

(1) Speaking is more powerful than doing
(2) Silence is better than speech
(3) Counting things carefully ensures accuracy
(4) **Don't depend on something that hasn't happened yet ✔**

Q.76

In the following passage, some words have been deleted. Read the passage carefully and select the most appropriate option to fill in each blank.
In a village, there lived a farmer who had a very beautiful daughter. She was ___(1)___ Sonal, for the hair on her head was of pure gold. Sonal's mother took full care ___(2)___ her daughter's priceless hair and would go to great lengths to keep it ___(3)___. Before Sonal would go swimming in the ___(4)___ with her friends, her mother would count her hair. When Sonal would return, her mother would again ___(5)___ the hair.

Select the most appropriate option to fill in blank number 4.

(1) rack
(2) lace
(3) lack
(4) **lake ✔**

Q.77

In the following passage, some words have been deleted. Read the passage carefully and select the most appropriate option to fill in each blank.
In a village, there lived a farmer who had a very beautiful daughter. She was ___(1)___ Sonal, for the hair on her head was of pure gold. Sonal's mother took full care ___(2)___ her daughter's priceless hair and would go to great lengths to keep it ___(3)___. Before Sonal would go swimming in the ___(4)___ with her friends, her mother would count her hair. When Sonal would return, her mother would again ___(5)___ the hair.

Select the most appropriate option to fill in blank number 1.

(1) named ✔
(2) titled
(3) termed
(4) known

Q.78

In the following passage, some words have been deleted. Read the passage carefully and select the most appropriate option to fill in each blank.
In a village, there lived a farmer who had a very beautiful daughter. She was ___(1)___ Sonal, for the hair on her head was of pure gold. Sonal's mother took full care ___(2)___ her daughter's priceless hair and would go to great lengths to keep it ___(3)___. Before Sonal would go swimming in the ___(4)___ with her friends, her mother would count her hair. When Sonal would return, her mother would again ___(5)___ the hair.

Select the most appropriate option to fill in blank number 3.

(1) safe ✔
(2) muddy
(3) dirty
(4) lock

Q.79

In the following passage, some words have been deleted. Read the passage carefully and select the most appropriate option to fill in each blank.
In a village, there lived a farmer who had a very beautiful daughter. She was ___(1)___ Sonal, for the hair on her head was of pure gold. Sonal's mother took full care ___(2)___ her daughter's priceless hair and would go to great lengths to keep it ___(3)___. Before Sonal would go swimming in the ___(4)___ with her friends, her mother would count her hair. When Sonal would return, her mother would again ___(5)___ the hair.

Select the most appropriate option to fill in blank number 5.

(1) count ✔
(2) brush
(3) find
(4) care

Q.80

In the following passage, some words have been deleted. Read the passage carefully and select the most appropriate option to fill in each blank.
In a village, there lived a farmer who had a very beautiful daughter. She was ___(1)___ Sonal, for the hair on her head was of pure gold. Sonal's mother took full care ___(2)___ her daughter's priceless hair and would go to great lengths to keep it ___(3)___. Before Sonal would go swimming in the ___(4)___ with her friends, her mother would count her hair. When Sonal would return, her mother would again ___(5)___ the hair.

Select the most appropriate option to fill in blank number 2.

(1) of ✔
(2) for
(3) from
(4) with

Hindi Language and Comprehension

Q.81 निम्नलिखित विकल्पों में से 'उत्कर्ष' का विलोम शब्द कौन-सा है?

(1) अनुचित
(2) अपकर्ष ✔
(3) दक्षिण
(4) संघर्ष

Q.82 दिए गए वाक्य के किस भाग में त्रुटि है?
इस लिफाफे पर गोपयनीय लिखा है।

(1) गोपयनीय ✔
(2) लिखा है
(3) इस
(4) लिफाफे पर

Q.83 'टके का सब खेल है' लोकोक्ति का क्या अर्थ है?

(1) दोनों एक जैसे
(2) पैसा सब कुछ करता है ✔
(3) ठीक मेल है
(4) जैसा दोगे वैसा पाओगे

Q.84 निम्नलिखित वाक्य को सही क्रम में लगाओ।
(1)एक उपन्यास का (2)अनुवाद किया (3)अंग्रेज़ी में (4)मोहन ने

(1) 1 3 4 2
(2) 4 3 2 1
(3) 1 2 3 4
(4) 4 1 3 2 ✔

Q.85 निम्नलिखित विकल्पों में से शुद्ध वाक्य का चयन करें।}

(1) वे स्वर्ग सुधारे गए।

(2) वे स्वर्ग सिधार गए। ✔

(3) वे स्वर्ग सुधार गए।

(4) वे स्वर्ग सिधारे गए।

Q.86 निम्नलिखित में से कौन-सा विकल्प तत्सम शब्द है?

(1) आज

(2) आँसू

(3) आग

(4) आम्र ✔

Q.87 निम्नलिखित में से कौन-सा विकल्प 'ऊर्मि' शब्द का अर्थ है?

(1) आँख

(2) लहर ✔

(3) कस्तूरी

(4) अमृत

Q.88 निम्नलिखित विकल्पों में से शुद्ध वाक्य का चयन करें

(1) प्रेम का मूल्य आँका नहीं जा सकता। ✔

(2) प्रेम का मूल्य मापा नहीं जा सकता।

(3) प्रेम का मूल्य आँकी नहीं जा सकता।

(4) प्रेम का मूल्य मापी नहीं जा सकता।

Q.89 निम्नलिखित विकल्पों में से 'तालाब' का पर्यायवाची कौन-सा है?

(1) सरोवर ✔

(2) सुर

(3) कृपाण

(4) अमर

Q.90 निम्नलिखित वाक्य को ध्यानपूर्वक पढ़ें और संयुक्त क्रिया शब्द का प्रयोग कर रिक्त स्थान की पूर्ति करें।
मीरा स्कूल____।

(1) जाएगी

(2) गयी

(3) चली गयी ✔

(4) जाती है

Q.91 निम्नलिखित गद्यांश में अतिरिक्त वाक्य चुनें।
ग़रीबों, ब्राह्मणों की बेटियों को शादी में देकर कुछ पुण्य कमा लेती हूँ। इतनी उम्र होने पर भी उन्होंने कभी लाठी का सहारा नहीं लिया था। अपने लिए तो आस-पास के बच्चों को घेर-बटोर कर पढ़ाती हूँ और उससे अपना ख़र्च चलाती हूँ। मेरे पास बचता ही क्या है जो तुझे या किसी और को दूँगी?

(1) ग़रीबों, ब्राह्मणों की बेटियों को शादी में देकर कुछ पुण्य कमा लेती हूँ।

(2) मेरे पास बचता ही क्या है जो तुझे या किसी और को दूँगी?

(3) अपने लिए तो आस-पास के बच्चों को घेर-बटोर कर पढ़ाती हूँ और उससे अपना ख़र्च चलाती हूँ।

(4) इतनी उम्र होने पर भी उन्होंने कभी लाठी का सहारा नहीं लिया था। ✔

QuickSarkari.com | WhatsApp Channel | Telegram: t.me/quick_sarkari

Q.92 दिए गए वाक्य में रिक्त स्थान के लिए उपयुक्त कारक चुनें।
प्रतिभा ..... विकसित होने से कौन रोक सकता है?

(1) के
(2) **को ✔**
(3) अरे
(4) पर

Q.93 सेवानिवृत्ति के पश्चात वह अपना शेष जीवन _____व्यतीत कर रहा है। रिक्त स्थान के लिए सर्वाधिक उपयुक्त क्रियाविशेषण पद है-

(1) **सुखपूर्वक ✔**
(2) पर्यंत
(3) लीला
(4) यापन

Q.94 'चार दिन की चाँदनी' मुहावरे का क्या अर्थ है?

(1) जवाब न देना
(2) उजाला होना
(3) खुशामद करना
(4) **थोड़े दिन का सुख ✔**

Q.95 दिए गए वाक्यांश के लिए सार्थक शब्द चुनें।
जो सुन न सके

(1) बाधित
(2) **बधिर ✔**
(3) अलग
(4) निस्सार

Q.96

निम्नलिखित गद्यांश को पढ़कर दिए गए प्रश्नों के उत्तर दीजिए:
आधुनिक युग में कहने के लिए लड़का-लड़की एक समान हैं किंतु इसके पीछे भी रहस्य कुछ और ही है। यदि यह सच होता तो असंख्य मादा भ्रूणों को गर्भ में नष्ट नहीं किया जाता। इसके परिणाम यह निकल रहे हैं कि लड़का-लड़की के प्रतिशत में काफी अंतर आ रहा है। इसका सीधा प्रभाव प्रकृति के संतुलन पर पड़ता है। पिछली शताब्दी में गुजरात में 'दूधपीती' प्रथा के अंतर्गत नवजात लड़कियों को दूध से भरे पात्र में डुबोकर मार दिया जाता था। परंतु इससे भी अधिक दुख का विषय है कि आजकल तो अधिकांश लड़कियों की जन्म से पहले ही हत्या कर दी जाती है। गर्भपात को कानून की दृष्टि से अपराध नहीं माना जाता। ऐसी विषम स्थिति में लड़का-लड़की को एक समान कहने वाली बात हास्यास्पद लगती है। अधिकांश माता-पिता लड़कियों को बोझ के रूप में देखते हैं। दहेज प्रथा की भयावहता लड़की के जीवन के आकाश में धूमकेतु बनकर छा जाती है।

दिए गए गद्यांश के लिए उपयुक्त शीर्षक चुनिए-

(1) आधुनिक
(2) नवजात
(3) **नारी की स्थिति ✔**
(4) दहेज

Q.97

निम्नलिखित गद्यांश को पढ़कर दिए गए प्रश्नों के उत्तर दीजिए:
आधुनिक युग में कहने के लिए लड़का-लड़की एक समान हैं किंतु इसके पीछे भी रहस्य कुछ और ही है। यदि यह सच होता तो असंख्य मादा भ्रूणों को गर्भ में नष्ट नहीं किया जाता। इसके परिणाम यह निकल रहे हैं कि लड़का-लड़की के प्रतिशत में काफी अंतर आ रहा है। इसका सीधा प्रभाव प्रकृति के संतुलन पर पड़ता है। पिछली शताब्दी में गुजरात में 'दूधपीती' प्रथा के अंतर्गत नवजात लड़कियों को दूध से भरे पात्र में डुबोकर मार दिया जाता था। परंतु इससे भी अधिक दुख का विषय है कि आजकल तो अधिकांश लड़कियों की जन्म से पहले ही हत्या कर दी जाती है। गर्भपात को कानून की दृष्टि से अपराध नहीं माना जाता। ऐसी विषम स्थिति में लड़का-लड़की को एक समान कहने वाली बात हास्यास्पद लगती है। अधिकांश माता-पिता लड़कियों को बोझ के रूप में देखते हैं। दहेज प्रथा की भयावहता लड़की के जीवन के आकाश में धूमकेतु बनकर छा जाती है।

असंख्य मादा भ्रूणों को गर्भ में मारने से क्या होता है?

(1) सब सही हो जाता है।
(2) प्रकृति साथ नहीं देती।
(3) अधिक दुःख का विषय है।
(4) लड़का-लड़की के प्रतिशत में काफी अंतर आ रहा है। ✔

Q.98

निम्नलिखित गद्यांश को पढ़कर दिए गए प्रश्नों के उत्तर दीजिए:
आधुनिक युग में कहने के लिए लड़का-लड़की एक समान हैं किंतु इसके पीछे भी रहस्य कुछ और ही है। यदि यह सच होता तो असंख्य मादा भ्रूणों को गर्भ में नष्ट नहीं किया जाता। इसके परिणाम यह निकल रहे हैं कि लड़का-लड़की के प्रतिशत में काफी अंतर आ रहा है। इसका सीधा प्रभाव प्रकृति के संतुलन पर पड़ता है। पिछली शताब्दी में गुजरात में 'दूधपीती' प्रथा के अंतर्गत नवजात लड़कियों को दूध से भरे पात्र में डुबोकर मार दिया जाता था। परंतु इससे भी अधिक दुख का विषय है कि आजकल तो अधिकांश लड़कियों की जन्म से पहले ही हत्या कर दी जाती है। गर्भपात को कानून की दृष्टि से अपराध नहीं माना जाता। ऐसी विषम स्थिति में लड़का-लड़की को एक समान कहने वाली बात हास्यास्पद लगती है। अधिकांश माता-पिता लड़कियों को बोझ के रूप में देखते हैं। दहेज प्रथा की भयावहता लड़की के जीवन के आकाश में धूमकेतु बनकर छा जाती है।

वर्तमान समय में लड़कियों की क्या दशा है?

(1) हमारा समाज लड़कियों को समान मानने लगा है।
(2) अधिकांश माता-पिता लड़कियों को बोझ रूप में ही देखते हैं जिसके पीछे कई कारण हैं। ✔
(3) लड़का के प्रतिशत में कोई अंतर नहीं है।
(4) मादा भ्रूर्णों का गर्भपात करना आसान है।

Q.99

निम्नलिखित गद्यांश को पढ़कर दिए गए प्रश्नों के उत्तर दीजिए:
आधुनिक युग में कहने के लिए लड़का-लड़की एक समान हैं किंतु इसके पीछे भी रहस्य कुछ और ही है। यदि यह सच होता तो असंख्य मादा भ्रूणों को गर्भ में नष्ट नहीं किया जाता। इसके परिणाम यह निकल रहे हैं कि लड़का-लड़की के प्रतिशत में काफी अंतर आ रहा है। इसका सीधा प्रभाव प्रकृति के संतुलन पर पड़ता है। पिछली शताब्दी में गुजरात में 'दूधपीती' प्रथा के अंतर्गत नवजात लड़कियों को दूध से भरे पात्र में डुबोकर मार दिया जाता था। परंतु इससे भी अधिक दुख का विषय है कि आजकल तो अधिकांश लड़कियों की जन्म से पहले ही हत्या कर दी जाती है। गर्भपात को कानून की दृष्टि से अपराध नहीं माना जाता। ऐसी विषम स्थिति में लड़का-लड़की को एक समान कहने वाली बात हास्यास्पद लगती है। अधिकांश माता-पिता लड़कियों को बोझ के रूप में देखते हैं। दहेज प्रथा की भयावहता लड़की के जीवन के आकाश में धूमकेतु बनकर छा जाती है।

लड़की के जीवन के आकाश में धूमकेतु बनकर क्या छा जाती है?

(1) दूध से भरे पात्र
(2) दहेज प्रथा की भयावहता ✔
(3) कुछ रहस्य
(4) कानून की दृष्टि

Q.100

निम्नलिखित गद्यांश को पढ़कर दिए गए प्रश्नों के उत्तर दीजिए:
आधुनिक युग में कहने के लिए लड़का-लड़की एक समान हैं किंतु इसके पीछे भी रहस्य कुछ और ही है। यदि यह सच होता तो असंख्य मादा भ्रूणों को गर्भ में नष्ट नहीं किया जाता। इसके परिणाम यह निकल रहे हैं कि लड़का-लड़की के प्रतिशत में काफी अंतर आ रहा है। इसका सीधा प्रभाव प्रकृति के संतुलन पर पड़ता है। पिछली शताब्दी में गुजरात में 'दूधपीती' प्रथा के अंतर्गत नवजात लड़कियों को दूध से भरे पात्र में डुबोकर मार दिया जाता था। परंतु इससे भी अधिक दुख का विषय है कि आजकल तो अधिकांश लड़कियों की जन्म से पहले ही हत्या कर दी जाती है। गर्भपात को कानून की दृष्टि से अपराध नहीं माना जाता। ऐसी विषम स्थिति में लड़का-लड़की को एक समान कहने वाली बात हास्यास्पद लगती है। अधिकांश माता-पिता लड़कियों को बोझ के रूप में देखते हैं। दहेज प्रथा की भयावहता लड़की के जीवन के आकाश में धूमकेतु बनकर छा जाती है।

'शिक्षित' का विलोम है -

(1) अशिक्षित ✔
(2) शिक्षक
(3) अनपढ़
(4) शिक्षा

Vaccinator

Q.101 When was the last national census held in India?
भारत में अंतिम राष्ट्रीय जनगणना कब हुई थी?

(1) 2021
(2) 2011 ✔
(3) 2015
(4) 2001

Q.102 Which of the following groups is at the highest occupational risk due to improper biomedical waste management?
निम्नलिखित में से कौन-सा समूह, अनुचित जैव-चिकित्सा अपशिष्ट प्रबंधन के कारण सबसे अधिक व्यावसायिक जोखिम में है?

(1) Teachers / शिक्षक
(2) Pilots / पायलट
(3) Engineers / इंजीनियर
(4) Sanitation workers / सफाई कर्मचारी ✔

Q.103 The total number of cases (both new and existing) of a disease or condition present in a population at a given point of time is called _____.
किसी निश्चित समय पर किसी आबादी (population) में उपस्थित किसी रोग या स्थिति के कुल मामलों (नए और मौजूदा दोनों) की संख्या को _____ कहा जाता है।

(1) Prevalence / व्यापकता ✔
(2) Mortality rate / मृत्युदर
(3) Incidence / आघटन
(4) Birth rate / जन्मदर

Q.104 Which of the following items can be classified as biomedical waste?

निम्नलिखित में से कौन-सी वस्तुएँ, जैव-चिकित्सा अपशिष्ट के रूप में वर्गीकृत की जा सकती हैं?

(1) Office papers and old patient files from hospital administration / अस्पताल प्रशासन से कार्यालय के कागजात और पुराने रोगियों की फाइल

(2) Used syringes, discarded human tissues and microbiological cultures / प्रयुक्त सिरिंज, त्यक्त मानव ऊतक और सूक्ष्मजैविक संवर्धन ✔

(3) Food waste from patients' meals and food waste from the hospital cafeteria / रोगी के भोजन से निकलने वाला खाद्य अपशिष्ट और अस्पताल के कैफेटेरिया से निकलने वाला खाद्य अपशिष्ट

(4) Broken furniture and non-medical equipment used in hospitals / अस्पतालों में प्रयुक्त टूटे हुए फर्नीचर और गैर-चिकित्सा उपकरण

Q.105 Which of the following tests can measure total, free and combined chlorine with speed and accuracy?

निम्नलिखित में से कौन-सा परीक्षण, चाल और सटीकता के साथ कुल, मुक्त और संयुक्त क्लोरीन को माप सकता है?

(1) Shick test / शिक परीक्षण (Shick test)

(2) Orthotolidine test / ऑर्थोटोलिडाइन परीक्षण (Orthotolidine test) ✔

(3) Kveim test / केवीम परीक्षण (Kveim test)

(4) Benedict test / बेनेडिक्ट परीक्षण (Benedict test)

Q.106 According to the Bio-Medical Waste (Management and Handling) Rules, 1998 of India, what percentage of health care waste is considered hazardous, posing a risk to health?

भारत के जैव-चिकित्सा अपशिष्ट (प्रबंधन और हैंडलिंग) नियमावली, 1998 के अनुसार, स्वास्थ्य देखभाल अपशिष्ट का कितना प्रतिशत संकटकारी माना जाता है, जो स्वास्थ्य के लिए खतरा उत्पन्न करता है?

(1) 10-25% ✔

(2) Less than 5% / 5% से कम

(3) 50-60%

(4) 30-75%

Q.107 In a modern sewage treatment system, which of the following structures is known as the heart of the activated sludge process?

आधुनिक वाहितमल उपचार प्रणाली में निम्नलिखित में से कौन-सी संरचना सक्रियित आपंक प्रक्रम के केंद्र के रूप में जानी जाती है?

(1) Grit chamber / ग्रिट चैंबर (Grit chamber)

(2) Aeration tank / वातन टैंक (Aeration tank) ✔

(3) Horrock's apparatus / हॉरॉक उपकरण (Horrock's apparatus)

(4) Trickling filter / ट्रिकलिंग फ़िल्टर (Trickling filter)

Q.108 Which of the following gases is commonly produced due to the anaerobic decomposition of organic waste in a sanitary landfill?

सैनिटरी लैंडफिल में कार्बनिक अपशिष्ट के अवायवीय अपघटन के कारण निम्नलिखित में से कौन-सी गैस सामान्यतः उत्पादित होती है?

(1) Oxygen / ऑक्सीजन

(2) Methane / मेथेन ✔

(3) Carbon dioxide / कार्बन डाइऑक्साइड

(4) Nitrogen / नाइट्रोजन

Q.109 According to the BMW Rules, 2016, which of the following categories of waste contains chemicals, chemical sludge and residual chemicals that are no longer usable?

निम्नलिखित में से किस श्रेणी के अपशिष्ट में रसायन, रासायनिक आपंक और अवशिष्ट रसायन होते हैं, जो BMW नियमावली, 2016 के अनुसार अब उपयोग योग्य नहीं हैं?

(1) Black category / काली श्रेणी

(2) Yellow category / पीली श्रेणी ✔

(3) Blue category / नीली श्रेणी

(4) Red category / लाल श्रेणी

Q.110 Which of the following stages of the demographic cycle is characterised by high birth and death rates, resulting in a stationary or slow population growth?

जनसांख्यिकी चक्र के निम्नलिखित में से किस चरण की विशेषता, उच्च जन्म और मृत्यु दर है, जिसके परिणामस्वरूप स्थिर या धीमी गति से जनसंख्या वृद्धि होती है?

(1) Late Expanding Stage 3 / विलंबित प्रसार चरण 3 (Late Expanding Stage 3)

(2) High Stationary Stage 1 / उच्च स्थिर चरण 1 (High Stationary Stage 1) ✔

(3) Early Expanding Stage 2 / प्रारंभिक विस्तार चरण 2 (Early Expanding Stage 2)

(4) Low Stationary Stage 4 / निम्न स्थिर चरण 4 (Low Stationary Stage 4)

Q.111 Which of the following methods is most suitable for the treatment of liquid biomedical waste such as blood, urine, faeces or hospital sewage?

द्रव जैव-चिकित्सा अपशिष्ट जैसे रक्त, मूत्र, मल या अस्पताल के वाहितमल के उपचार के लिए निम्नलिखित में से कौन-सी विधि सबसे उपयुक्त है?

(1) Chemical disinfection / रासायनिक विसंक्रमण (Chemical disinfection) ✔

(2) Incineration / भस्मीकरण (Incineration)

(3) Shredding / कर्तन (Shredding)

(4) Autoclaving / ऑटोक्लेवन (Autoclaving)

Q.112 Which of the following is a direct morbidity indicator?

निम्नलिखित में से कौन-सा प्रत्यक्ष अस्वस्थता सूचक है?

(1) Case fatality rate / रोगी मृत्यु दर (Case fatality rate)

(2) Death rate / मृत्यु दर (Death rate)

(3) Incidence rate / आघटन दर (Incidence rate) ✔

(4) Life expectancy / जीवन प्रत्याशा (Life expectancy)

Q.113 Which of the following methods is traditionally used for the mass disposal of dead bodies in a disaster situation in rural India?

ग्रामीण भारत में आपदा की स्थिति में शवों के सामूहिक निपटान के लिए पारंपरिक रूप से निम्नलिखित में से किस विधि का उपयोग किया जाता है?

(1) Chemical disinfection / रासायनिक विसंक्रमण (Chemical disinfection)

(2) Open dumping / खुल में डंप करना (Open dumping)

(3) Deep burial / गहराई में दफन करना (Deep burial) ✔

(4) Recycling / पुनर्चक्रण (Recycling)

Q.114 Which of the following methods is the most effective for the disposal of infectious, chemical and pharmaceutical waste?

संक्रामक, रासायनिक और भैषजिक अपशिष्ट के निपटान के लिए निम्नलिखित में से कौन-सी विधि सबसे प्रभावी है?

(1) Rotary kiln incineration / घूर्णी भट्टा भस्मीकरण ✔

(2) Deep burial in the ground / जमीन में गहराई में गाड़ना

(3) Chemical disinfection / रासायनिक विसंक्रमण

(4) Open dumping / खुले में डालना

Q.115 Which of the following stages of the demographic cycle is also known as the Low Stationary stage?

जनसांख्यिकी चक्र के निम्नलिखित में से किस अवस्था को निम्न स्थिर अवस्था (Low Stationary stage) के रूप में भी जाना जाता है?

(1) Stage 3 / अवस्था 3

(2) Stage 2 / अवस्था 2

(3) Stage 4 / अवस्था 4 ✔

(4) Stage 1 / अवस्था 1

Q.116 Which of the following insecticides is usually prepared from the flowers of Chrysanthemum cinerariaefolium?

निम्नलिखित में से कौन-सा कीटनाशक, प्रायः क्राइसेन्थिमम सिनेरेरियाएफोलियम (Chrysanthemum cinerariaefolium) के पुष्पों से तैयार किया जाता है?

(1) Propoxur / प्रोपोक्सुर (Propoxur)

(2) Pyrethrum / पाइरेथ्रम (Pyrethrum) ✔

(3) Malathion / मैलैथियान (Malathion)

(4) Paris green / पेरिस ग्रीन (Paris green)

Q.117 Which of the following categories of waste is considered 'sharps' biomedical waste?

निम्नलिखित में से अपशिष्ट की किस श्रेणी को 'शार्प्स (sharps)' बायोमेडिकल अपशिष्ट माना जाता है?

(1) IV bags with residual fluid / अवशिष्ट तरल के साथ IV बैग

(2) Broken glass vials / टूटी हुई कांच की शीशियाँ ✔

(3) Used bandages / उपयोग की गई पट्टियाँ

(4) Expired medicines / एक्सपायर हो चुकी दवाइयाँ

Q.118 The annual number of female deaths per 1,00,000 live births from any cause related to or aggravated by pregnancy or its management, excluding accidental or incidental causes, is known as _____.

आकस्मिक या प्रासंगिक कारणों को छोड़कर, गर्भावस्था या उसके प्रबंधन से संबंधित या उसके कारण उत्पन्न किसी भी कारण से प्रति 1,00,000 जीवित जन्मों पर महिला मृत्यु की वार्षिक संख्या को _____ के रूप में जाना जाता है।

(1) Neonatal mortality ratio / नवजात मृत्यु दर अनुपात

(2) Infant mortality ratio / शिशु मृत्यु दर अनुपात

(3) Maternal mortality ratio / मातृ मृत्यु दर अनुपात ✔

(4) Perinatal mortality ratio / प्रसवकालीन मृत्यु दर अनुपात

Q.119 DDT belongs to which class of insecticides?

DDT, कीटनाशकों के किस वर्ग से संबंधित है?

(1) Urates / यूरेट्स (Urates)

(2) Carbamates / कार्बामेट (Carbamates)

(3) Organophosphorus compounds / ऑर्गेनोफॉस्फोरस यौगिक (Organophosphorus compounds)

(4) Organochlorine compounds / ऑर्गेनोक्लोरीन यौगिक (Organochlorine compounds) ✔

Q.120 Which of the following is considered a source of biomedical waste?

निम्नलिखित में से किसे जैव-चिकित्सा अपशिष्ट का स्रोत माना जाता है?

(1) Paper mill / कागज मिल

(2) **Hospital laboratory / अस्पताल प्रयोगशाला ✔**

(3) Textile factory / वस्त्र कारखाना

(4) Food industry / खाद्य उद्योग

Q.121 Which of the following is the correct sequence of the components of the WHO STEPS approach for non-communicable disease risk factor surveillance?

निम्नलिखित में से कौन-सा गैर-संचारी रोग जोखिम कारक निगरानी के लिए WHO STEPS उपागम के घटकों का सही अनुक्रम है?

(1) Questionnaire → Biochemical measurements → Physical measurements / प्रश्नावली → जैव रासायनिक माप → भौतिक माप

(2) Physical measurements → Questionnaire → Biochemical measurements / भौतिक माप → प्रश्नावली → जैव रासायनिक माप

(3) **Questionnaire → Physical measurements → Biochemical measurements / प्रश्नावली → भौतिक माप → जैव रासायनिक माप ✔**

(4) Biochemical measurements → Questionnaire → Physical measurements / जैव रासायनिक माप → प्रश्नावली → भौतिक माप

Q.122 Which of the following gases is NOT considered a primary greenhouse gas responsible for global warming?

निम्नलिखित में से किस गैस को ग्लोबल वार्मिंग के लिए उत्तरदायी प्राथमिक ग्रीनहाउस गैस नहीं माना जाता है?

(1) N_2O

(2) **O_2 ✔**

(3) CO_2

(4) CH_4

Q.123 Which of the following hepatitis is mainly transmitted by the faecal-oral route through contaminated water?

निम्नलिखित में से कौन-सा हेपेटाइटिस, मुख्य रूप से दूषित जल के माध्यम से मल-मुख मार्ग (faecal-oral route) से संचारित होता है?

(1) **Hepatitis E / हेपेटाइटिस E ✔**

(2) Hepatitis B / हेपेटाइटिस B

(3) Hepatitis D / हेपेटाइटिस D

(4) Hepatitis C / हेपेटाइटिस C

Q.124 Which water testing instrument is designed to determine the amount of bleaching powder required for disinfection of water?

कौन-सा जल परीक्षण मापयंत्र जल विसंक्रमण के लिए आवश्यक ब्लीचिंग पाउडर की मात्रा ज्ञात करने के लिए डिज़ाइन किया गया है?

(1) Esrite's apparatus / इसराइट उपकरण (Esrite's apparatus)

(2) Wintrobe's apparatus / विंट्रोब उपकरण (Wintrobe's apparatus)

(3) Westergren's apparatus / वेस्टरग्रेन उपकरण (Westergren's apparatus)

(4) **Horrock's Apparatus / हॉरॉक उपकरण (Horrock's Apparatus) ✔**

QuickSarkari.com | WhatsApp Channel | Telegram: t.me/quick_sarkari

Q.125 What is the guideline value for E. coli or thermotolerant coliform bacteria for all drinking water?
समस्त पेय जल के लिए ई. कोलाई या तापसह कॉलीफार्म जीवाणु का दिशानिर्देश मान क्या है?

(1) Must not be detectable in any 700 ml sample / निदर्श के किसी भी 700 ml में संसूचनीय न होना
(2) **Must not be detectable in any 100 ml sample / निदर्श के किसी भी 100 ml में संसूचनीय न होना ✔**
(3) Must not be detectable in any 500 ml sample / निदर्श के किसी भी 500 ml में संसूचनीय न होना
(4) Must not be detectable in any 900 ml sample / निदर्श के किसी भी 900 ml में संसूचनीय न होना

Q.126 According to NFHS-3 (2005-06), which of the following factors is associated with an increased risk of infant mortality?
NFHS-3 (2005-06) के अनुसार, निम्नलिखित में से कौन-सा कारक शिशु मृत्यु दर के बढ़ते जोखिम से संबंधित है?

(1) Good ventilation / अच्छा संवातन
(2) Exclusive breastfeeding / केवल स्तनपान
(3) Availability of piped water / पाइप से पानी की उपलब्धता
(4) **Poor drainage and insect breeding / खराब जल निकासी और कीट प्रजनन ✔**

Q.127 What is the primary objective of mass treatment in the control of diseases like yaws and filariasis?
यॉज़ (yaws) और फाइलेरिया जैसे रोगों के नियंत्रण में सामूहिक उपचार का प्राथमिक उद्देश्य क्या है?

(1) **Treat the entire community to prevent the spread of the disease / रोग को फैलने से रोकने के लिए पूरे समुदाय का उपचार करें ✔**
(2) Vaccinate only the children / केवल बच्चों का टीकाकरण करें
(3) Treat only those patients who are showing symptoms / केवल उन्हीं रोगियों का उपचार करें, जिनमें लक्षण दिखाई दे रहे हों
(4) Focus on treating the animals that spread the disease / रोग फैलाने वाले जानवरों के उपचार पर ध्यान दें

Q.128 Which of the following diseases is NOT spread by droplet nuclei?
निम्नलिखित में से कौन-सा रोग बिंदुक केंद्रक (droplet nuclei) द्वारा नहीं फैलता है?

(1) **Leishmaniasis / लीशमैनियता (leishmaniasis) ✔**
(2) Tuberculosis / यक्ष्मा (tuberculosis)
(3) Chickenpox / छोटी माता (chickenpox)
(4) Influenza / इंफ्लुएन्जा (influenza)

Q.129 Which of the following oxidising agents is NOT used for disinfection?
निम्नलिखित में से कौन-सा ऑक्सीकारक, विसंक्रमण के लिए उपयोग नहीं किया जाता है?

(1) **Hexachlorophene / हेक्साक्लोरोफीन (Hexachlorophene) ✔**
(2) Potassium permanganate / पोटैशियम परमैंगनेट (potassium permanganate)
(3) Peracetic acid / परऐसीटिक अम्ल (Peracetic acid)
(4) Hydrogen peroxide / हाइड्रोजन परॉक्साइड (hydrogen peroxide)

Q.130 Which of the following diseases is caused by Coxiella burnetii?
निम्नलिखित में से कौन-सा रोग, कॉक्सिएला बर्नेटी (Coxiella burnetii) के कारण होता है?

(1) Yellow fever / पीत ज्वर (Yellow fever)
(2) **Q fever / Q ज्वर (Q fever) ✔**
(3) Scrub typhus / स्क्रब टाइफस (Scrub typhus)
(4) Murine typhus / मूषक टाइफस (Murine typhus)

Q.131 According to the Indian Factories Act, what is the minimum air space required per worker in a factory room?

भारतीय कारखाना अधिनियम के अनुसार, एक फैक्ट्री कक्ष में प्रति श्रमिक के लिए न्यूनतम कितनी वायु जगह (air space) आवश्यक है?

(1) 1000 cu. ft

(2) **500 cu. ft ✔**

(3) 200 cu. ft

(4) 300 cu. ft

Q.132 Which of the following is NOT true regarding the Sabin vaccine?

सेबिन वैक्सीन (Sabin vaccine) के संबंध में निम्नलिखित में से कौन-सा सत्य नहीं है?

(1) **It is given IM or subcutaneously / इसे IM या अधःत्वक् रूप से दिया जाता है ✔**

(2) It can be used effectively to control epidemics / इसका उपयोग महामारी को नियंत्रित करने में प्रभावी रूप से किया जा सकता है

(3) It is a live attenuated vaccine / यह एक जीवित तनूकृत वैक्सीन है

(4) It provides both humoral and intestinal immunity / यह देहतरल और आंत्रीय दोनों प्रतिरक्षा प्रदान करता है

Q.133 Which of the following copper acetoarsenite microcrystalline powders is used as a larvicide?

निम्नलिखित में से कौन-सा कॉपर एसिटोआर्सेनाइट सूक्ष्मक्रिस्टलीय पाउडर लार्वानाशी के रूप में उपयोग किया जाता है?

(1) **Paris green / पेरिस ग्रीन (Paris green) ✔**

(2) Chlorpyrifos / क्लोरपाइरीफोस (Chlorpyrifos)

(3) Abate / अबेट (Abate)

(4) Fenthion / फेन्थियान (Fenthion)

Q.134 Which of the following parts of the iceberg represents the hidden mass of disease in the community, such as latent, inapparent, presymptomatic and undiagnosed cases and carriers?

आइसबर्ग (iceberg) का निम्नलिखित में से कौन-सा भाग, समुदाय में अव्यक्त, अप्रकट, लक्षणपूर्व और निदानहीन मामलों और वाहकों जैसे रोगों के छिपे हुए समूह का प्रतिनिधित्व करता है?

(1) **The large submerged portion of the iceberg / आइसबर्ग का विशाल जलमग्न भाग ✔**

(2) The waterline of the iceberg / आइसबर्ग की जलरेखा

(3) The floating tip of the iceberg / आइसबर्ग का प्लावी अग्र

(4) The entire iceberg / पूर्ण आइसबर्ग

Q.135 Which of the following measures is used to control and prevent the transmission of dracunculiasis?

ड्रैकन्कुलस रूग्णता (dracunculiasis) के संचरण को नियंत्रित करने और रोकने के लिए निम्नलिखित में से किस उपाय का उपयोग किया जाता है?

(1) Respiratory isolation and precautions / श्वसन अलगाव (Respiratory isolation) और सावधानियां

(2) **Provision of safe drinking water / सुरक्षित पेयजल का प्रबंध ✔**

(3) Droplet and fomite precautions / ड्रॉपलेट और फोमाइट (Droplet and fomite) संबंधी सावधानियां

(4) Elimination of mosquito breeding sites / मच्छरों के प्रजनन स्थानों का उन्मूलन

Q.136 Which of the following statements best describes the importance of handwashing facilities in every household?

निम्नलिखित में से कौन-सा कथन, प्रत्येक घर में हाथ धोने की सुविधा के महत्व को सर्वोत्तम तरीके से वर्णित करता है?

(1) It reduces the need for community toilets. / इससे सामुदायिक शौचालयों की आवश्यकता कम हो जाती है।

(2) It eliminates the need for soap during cleaning. / इससे सफाई के दौरान साबुन की आवश्यकता समाप्त हो जाती है।

(3) It increases water consumption in rural areas. / इससे ग्रामीण क्षेत्रों में जल की खपत बढ़ जाती है।

(4) It prevents the spread of diseases and promotes menstrual hygiene. / यह रोगों को फैलने से रोकता है और आर्तवकालीन स्वस्थवृत्त को बढ़ावा देता है। ✔

Q.137 All of the following are foodborne infections EXCEPT:

निम्नलिखित में से किस एक को छोड़कर शेष सभी खाद्य जनित संक्रमण हैं?

(1) Salmonellosis / साल्मोनेलता (salmonellosis)

(2) Listeriosis / लिस्टेरीमयता (listeriosis)

(3) Shigellosis / शिगेलारूग्णता (shigellosis)

(4) Leishmaniasis / लीशमैनियता (leishmaniasis) ✔

Q.138 Which of the following rodenticides has been considered extremely hazardous for use by the WHO Expert Committee?

निम्नलिखित में से किस कृंतकनाशी (rodenticide) को WHO की विशेषज्ञ समिति द्वारा उपयोग के लिए अत्यधिक खतरनाक माना गया है?

(1) Norbormide / नॉरबोर्माइड (Norbormide)

(2) Red squill / रेड स्क्विल (Red squill)

(3) Arsenic trioxide / आर्सेनिक ट्राइऑक्साइड (Arsenic trioxide) ✔

(4) Zinc phosphide / जिंक फ़ॉस्फाइड (Zinc phosphide)

Q.139 What does the term 'Pulse' mean in Pulse Polio Immunisation?

पल्स पोलियो प्रतिरक्षीकरण (Pulse Polio Immunisation) में 'पल्स' शब्द का क्या आशय है?

(1) Vaccination is given only to adults / टीकाकरण केवल वयस्कों को दिया जाता है

(2) Vaccination is done continuously throughout the year / पूरे वर्ष लगातार टीकाकरण किया जाता है

(3) Sudden, simultaneous mass administration of OPV on a single day / अचानक एक ही दिन में OPV का एक साथ सामूहिक अवचारण ✔

(4) Vaccination through pulse injection / पल्स इंजेक्शन के माध्यम से टीकाकरण

Q.140 According to housing standards, the ideal daylight factor should be _____.

आवास मानकों के अनुसार, आदर्श दिवालोक गुणांक (daylight factor)_____ होना चाहिए।

(1) More than 1% over half the floor area / आधे फर्श क्षेत्रफल पर 1% से अधिक ✔

(2) More than 0.2% over half the floor area / आधे फर्श क्षेत्रफल पर 0.2% से अधिक

(3) More than 0.1% over half the floor area / आधे फर्श क्षेत्रफल पर 0.1% से अधिक

(4) More than 0.4% over half the floor area / आधे फर्श क्षेत्रफल पर 0.4% से अधिक

Q.141 In the context of primary health care, who are the main targets of the health education effort?

प्राथमिक स्वास्थ्य देखभाल के संदर्भ में, स्वास्थ्य शिक्षा प्रयास के प्रमुख लक्ष्य कौन-से हैं?

(1) Doctors and nurses / डॉक्टर और नर्स

(2) Pharmaceutical companies / भैषजिक (Pharmaceutical) कंपनियां

(3) General public, patients, community leaders and health providers / आम जनता, रोगी, सामुदायिक नेता और स्वास्थ्य प्रदाता ✔

(4) Government officials / सरकारी अधिकारी

Q.142 According to Sigmund Freud, what is the psychosexual stage of an infant?

सिगमंड फ्रायड के अनुसार शिशु की मनोलैंगिक अवस्था क्या है?

(1) Latency stage / कामप्रसुप्ति अवस्था (Latency stage)

(2) Anal stage / गुदावस्था (Anal stage)

(3) Oral stage / मौखिक अवस्था (Oral stage) ✔

(4) Phallic stage / शिश्न अवस्था (Phallic stage)

Q.143 Which of the following best explains how biological factors affect a person's health?

निम्नलिखित में से कौन-सा, सर्वोत्तम रूप से यह स्पष्ट करता है कि जैविक कारक किसी व्यक्ति के स्वास्थ्य को किस प्रकार प्रभावित करते हैं?

(1) The level of income determines the ability to access health services. / आय का स्तर, स्वास्थ्य सेवाओं तक पहुंच की क्षमता निर्धारित करता है।

(2) Living in an urban area increases the likelihood of respiratory illnesses. / शहरी क्षेत्र में रहने से श्वसन संबंधी बीमारियों की संभावना बढ़ जाती है।

(3) Education increases awareness regarding hygiene and nutrition. / शिक्षा, स्वच्छता और पोषण के संबंध में जागरूकता को बढ़ाती है।

(4) Genetic makeup affects disease susceptibility and interaction with the environment. / आनुवंशिक संरचना, रोग सुग्राहिता और पर्यावरण के साथ अंतःक्रिया को प्रभावित करती है। ✔

Q.144 In the context of family planning and reproductive health, which of the following health education areas is the most important for target couples?

परिवार नियोजन और जनन स्वास्थ्य के संदर्भ में लक्षित दम्पतियों के लिए निम्नलिखित में से कौन-सा स्वास्थ्य शिक्षा क्षेत्र सबसे महत्वपूर्ण है?

(1) Antenatal care and its importance / प्रसवपूर्व देखरेख और उसका महत्व

(2) Importance of breastfeeding / स्तनपोषण का महत्व

(3) Contraceptive methods / गर्भनिरोधक विधियां ✔

(4) Immunisation programmes / प्रतिरक्षीकरण कार्यक्रम

Q.145 What is the duration of hand hygiene recommended by the World Health Organization when using an alcohol-based hand rub?

ऐल्कोहॉल-आधारित हैंड रब का उपयोग करके हाथ धोने की विश्व स्वास्थ्य संगठन द्वारा अनुशंसित अवधि कितनी है?

(1) 10-15 seconds / 10-15 सेकंड

(2) 60-80 seconds / 60-80 सेकंड

(3) 20-30 seconds / 20-30 सेकंड ✔

(4) 5-10 seconds / 5-10 सेकंड

Q.146 Under NABH, which is the main component of hospital infection control?

NABH के अंतर्गत, अस्पताल संक्रमण नियंत्रण का मुख्य घटक कौन-सा है?

(1) Monthly staff rotation / मासिक स्टाफ रोटेशन

(2) Patient feedback collection / रोगी फीडबैक संग्रह

(3) Periodic facility renovation / आवधिक सुविधा नवीनीकरण

(4) Compliance with hand hygiene / हस्त स्वस्थवृत का अनुपालन ✔

Q.147 Which of the following treatments used in ancient Egypt reflects a misconception of disease pathology by today's standards?

प्राचीन मिस्र में प्रयुक्त निम्नलिखित में से कौन-सा उपचार आज के मानकों के अनुसार रोग विकृति विज्ञान के मिथ्याबोध को दर्शाता है?

(1) Use of herbal medicines / हर्बल औषधियों का उपयोग

(2) **Use of castor oil for digestion / पाचन के लिए अरंडी के तेल का उपयोग ✔**

(3) Bloodletting to remove harmful substances / हानिकारक पदार्थों को निकालने के लिए रक्त-पात

(4) Monitoring of the pulse / नाड़ी (pulse) की मॉनीटरिंग

Q.148 Which of the following diseases can spread mainly through improper excreta disposal?

निम्नलिखित में से कौन-सी बीमारी मुख्यतः अनुचित मलमूत्र निपटान से फैल सकती है?

(1) German measles / जर्मन मीजिल्स (German measles)

(2) Visceral leishmaniasis / अंतरंग लीशमैनियता (Visceral leishmaniasis)

(3) Epidemic parotitis / जानपदिक कर्णपूर्वग्रंथिशोथ (Epidemic parotitis)

(4) **Typhoid fever / टाइफॉइड ज्वर (Typhoid fever) ✔**

Q.149 Which of the following health education approaches, also known as managed prevention, includes coercive approaches that attempt to change health behaviour and improve health through various kinds of external controls or laws imposed on people?

निम्नलिखित में से कौन-सा स्वास्थ्य शिक्षा उपागम, प्रबंधित निवारण के रूप में भी जाना जाता है जिसमें निग्रह उपागम (coercive approaches) शामिल हैं, जो लोगों पर लगाए गए विभिन्न प्रकार के बाहरी नियंत्रण या कानूनों के माध्यम से स्वास्थ्य व्यवहार में परिवर्तन और स्वास्थ्य में सुधार का प्रयास करता है?

(1) Service approach / सेवा उपागम (Service approach)

(2) Primary health care approach / प्राथमिक स्वास्थ्य देखभाल उपागम (Primary health care approach)

(3) **Regulatory approach / विनियामक उपागम (Regulatory approach) ✔**

(4) Health education approach / स्वास्थ्य शिक्षा उपागम (Health education approach)

Q.150 According to Erik Erikson, what is the psychosocial task of an infant?

एरिक एरिक्सन के अनुसार, एक शिशु का मनोसामाजिक कार्य क्या होता है?

(1) Autonomy vs. Shame and Doubt / स्वायत्तता बनाम लज्जा और शक (Autonomy vs. Shame and Doubt)

(2) Initiative vs. Guilt / पहलशक्ति बनाम दोष (Initiative vs. Guilt)

(3) **Trust vs. Mistrust / विश्वास बनाम अविश्वास (Trust vs. Mistrust) ✔**

(4) Industry vs. Inferiority / परिश्रम बनाम हीनता (Industry vs. Inferiority)

Q.151 What is the main objective of UNICEF's involvement in environmental sanitation programmes in rural India?

ग्रामीण भारत में पर्यावरण स्वच्छता कार्यक्रमों में यूनिसेफ (UNICEF) की भागीदारी का मुख्य उद्देश्य क्या है?

(1) To increase urban population growth / शहरी जनसंख्या वृद्धि को बढ़ाना

(2) **To reduce childhood diseases and deaths and improve the quality of life / बच्चों की बीमारियों और मृत्यु में कमी लाना तथा जीवन की गुणवत्ता में सुधार करना ✔**

(3) To promote industrial development / औद्योगिक विकास को बढ़ावा देना

(4) To promote medical tourism / चिकित्सा पर्यटन को बढ़ावा देना

Q.152 Which of the following practices is most appropriate for promoting healthy digestion and sleep hygiene?

स्वस्थ पाचन और स्लीप हाइजीन (sleep hygiene) को बढ़ावा देने के लिए निम्नलिखित में से कौन-सी प्रथा सबसे उपयुक्त है?

(1) Having dinner just before going to sleep / सोने से ठीक पहले डिनर करना

(2) Avoiding any kind of rest or sleep after lunch / दोपहर के भोजन के बाद किसी भी तरह के आराम या नींद से बचना

(3) Having dinner at least 3-4 hours before going to sleep / सोने से कम से कम 3-4 घंटे पहले डिनर करना ✓

(4) Skipping the night meal (dinner) / रात्री का भोजन (डिनर) छोड़ना

Q.153 Which of the following is the primary mode of transmission of meningococcal meningitis?

मेनिंगोकॉकसी मस्तिष्कावरणशोथ (meningococcal meningitis) के संचरण का प्राथमिक माध्यम निम्नलिखित में से कौन-सा है?

(1) Droplet infection / बिंदुक संक्रमण (Droplet infection) ✓

(2) Vector-borne / रोगवाहक-जनित (Vector-borne)

(3) Feco-oral route / फेको-ओरल मार्ग (Feco-oral route)

(4) Mosquito bites / मच्छरों का काटना

Q.154 Which of the following strategies is most appropriate for promoting menstrual hygiene in a rural community?

ग्रामीण समुदाय में मासिक धर्म स्वच्छता को बढ़ावा देने के लिए निम्नलिखित में से कौन-सी रणनीति सबसे उपयुक्त है?

(1) Limit awareness efforts to adult women only. / जागरूकता प्रयासों को केवल वयस्क महिलाओं तक ही सीमित रखें।

(2) Encourage Anganwadi workers to distribute napkins without any counselling. / आंगनवाड़ी कार्यकर्ताओं को बिना किसी परामर्श के नैपकिन वितरित करने के लिए प्रोत्साहित करें।

(3) Promote only traditional cloth methods, as they are culturally acceptable. / केवल पारंपरिक कपड़े वाले तरीकों को बढ़ावा दें, क्योंकि वे सांस्कृतिक रूप से स्वीकार्य हैं।

(4) Involve ASHA, SHG and VHSC members to educate adolescent girls and promote clean toilets. / किशोरियों को शिक्षित करने और स्वच्छ शौचालय को बढ़ावा देने के लिए ASHA, SHG और VHSC सदस्यों को शामिल करें। ✓

Q.155 Why is eye padding used in unconscious patients?

अचेत रोगियों में नेत्र पैडिंग (eye padding) का उपयोग क्यों किया जाता है?

(1) To prevent keratitis / स्वच्छपटल शोथ के निवारण के लिए ✓

(2) To prevent rhinorrhoea / नासास्राव के निवारण के लिए

(3) To prevent otitis / कर्णशोथ के निवारण के लिए

(4) To prevent pharyngitis / ग्रसनीशोथ के निवारण के लिए

Q.156 Which of the following is an example of a combined audio-visual aid?

निम्नलिखित में से कौन-सा, संयुक्त दृश्य-श्रव्य साधन का एक उदाहरण है?

(1) Television / टेलीविजन (Television) ✓

(2) Radio / रेडियो (Radio)

(3) Flannel graph / फ्लैनल ग्राफ (Flannel graph)

(4) Chalkboard / चाक बोर्ड (Chalkboard)

Q.157 In the context of health education, radio is classified as which type of educational aid?

स्वास्थ्य शिक्षा के संदर्भ में रेडियो को किस प्रकार की शिक्षा सहायक साधन (educational aid) के रूप में वर्गीकृत किया गया है?

(1) Digital aid / डिजिटल सहायता (Digital aid)

(2) Audio-visual aid / दृश्य-श्रव्य सहायता (Audio-visual aid)

(3) Visual aid / दृश्य सहायता (Visual aid)

(4) Auditory aid / श्रवण सहायता (Auditory aid) ✓

Q.158 In which situation is handwashing with soap and water necessary instead of an alcohol-based hand rub?

किस स्थिति में ऐल्कोहॉल आधारित हैंड रब के स्थान पर साबुन और जल से हाथ धोना आवश्यक है?

(1) After removing gloves. / दस्ताने उतारने के बाद।

(2) **When hands are visibly dirty or contaminated with blood/body fluids / जब हाथ गंदे दिखाई दे रहे हों या रक्त/शरीर के तरलों से संदूषित हों ✔**

(3) After arranging the patient's bed sheet / रोगी की चादर को व्यवस्थित करने के बाद

(4) Before entering the patient's room. / रोगी के कमरे में प्रवेश करने से पहले।

Q.159 The use of safe drinking water can prevent the transmission of which of the following diseases?

सुरक्षित पेयजल के उपयोग से निम्नलिखित में से किस रोग के संचरण को रोका जा सकता है?

(1) Acromegaly / अतिकायता (Acromegaly)

(2) Scurvy / स्कर्वी (Scurvy)

(3) Pellagra / पेलाग्रा (Pellagra)

(4) **Cholera / हैज़ा (Cholera) ✔**

Q.160 Which of the following principles of health education mainly implies the extent to which the message being communicated is perceived as trustworthy by the receiver?

निम्नलिखित में से किस स्वास्थ्य शिक्षा सिद्धांत का मुख्य रूप से यह तात्पर्य है कि संप्रेषित किया जाने वाला संदेश प्राप्तकर्ता द्वारा किस हद तक विश्वसनीय माना जाता है?

(1) Reinforcement / प्रबलन (Reinforcement)

(2) **Credibility / विश्वसनीयता (Credibility) ✔**

(3) Motivation / अभिप्रेरण (Motivation)

(4) Comprehension / अभिबोध (Comprehension)

Q.161 According to the Factories Act, 1948, which of the following safety provisions has been included specifically to protect workers from chemical and environmental hazards?

कारखाना अधिनियम, 1948 के अनुसार, निम्नलिखित में से कौन-सा सुरक्षा प्रावधान विशेष रूप से श्रमिकों को रासायनिक और पर्यावरणीय खतरों से बचाने के लिए शामिल किया गया है?

(1) Training workers in first aid procedures / श्रमिकों को प्रथम उपचार प्रक्रियाओं में प्रशिक्षण देना

(2) Provision of helmets and gloves / हेलमेट और दस्तानों का प्रावधान

(3) **Elimination of dust and fumes / धूल और धुएं का उन्मूलन ✔**

(4) Installation of emergency eye wash stations / आपात आई वॉश (eye wash) स्टेशनों का संस्थापन

Q.162 Which of the following is considered a widely recognised sensitive indicator of the overall health status and socio-economic development of a community or country?

निम्नलिखित में से किसे किसी समुदाय या देश की समग्र स्वास्थ्य स्थिति और सामाजिक-आर्थिक विकास का व्यापक रूप से मान्यता प्राप्त संवेदनशील संकेतक माना जाता है?

(1) **Number of infant deaths per 1000 live births / प्रति 1000 जीवित जन्मों पर शिशु मृत्यु की संख्या ✔**

(2) Number of hospital beds and nurse-patient ratio / अस्पताल में बेड की संख्या और नर्स-मरीज़ अनुपात

(3) Number of community medicine doctors per 1000 persons / प्रति 1000 व्यक्तियों पर सामुदायिक चिकित्सा डॉक्टरों की संख्या

(4) Number of public health nurses per 1000 persons / प्रति 1000 व्यक्तियों पर सार्वजनिक स्वास्थ्य नर्सों की संख्या

Q.163 Which of the following diseases is often called the 'father of public health'?

निम्नलिखित में से किस रोग को प्रायः 'सार्वजनिक स्वास्थ्य का जनक' कहा जाता है?

(1) Smallpox / चेचक (Smallpox)

(2) Typhoid / टाइफॉइड (Typhoid)

(3) Tuberculosis / यक्ष्मा (Tuberculosis)

(4) Cholera / हैजा (Cholera) ✔

Q.164 Which of the following is considered the key evidence-based practice for the prevention of healthcare-associated infections (HAI)?

स्वास्थ्य देखभाल से संबंधित संक्रमणों (HAI) की रोकथाम के लिए, निम्नलिखित में से किसे प्रमुख साक्ष्य- आधारित पद्धति माना जाता है?

(1) Frequent fumigation of hospital wards / अस्पताल के वार्डों में बार-बार धूमन

(2) Wearing double gloves at all times / पूरे समय डबल दस्ताने पहनना

(3) Proper hand hygiene using an alcohol-based hand rub / ऐल्कोहॉल-आधारित हैंड रब का उपयोग करके उचित हस्त स्वस्थवृत्त ✔

(4) Use of herbal hand cleansers / हर्बल हैंड क्लींजरों का उपयोग

Q.165 Who can be considered a first aid provider?

प्राथमिक चिकित्सा प्रदाता किसे माना जा सकता है?

(1) Only paramedics working in ambulances / केवल एम्बुलेंस में काम करने वाले पराचिकित्सक

(2) Only a licensed doctor with emergency training / केवल आपातकालीन प्रशिक्षण वाला लाइसेंस प्राप्त डॉक्टर

(3) Any person who is trained in first aid and who provides immediate care during an emergency / कोई भी व्यक्ति जो प्राथमिक चिकित्सा में प्रशिक्षित हो और जो आपात स्थिति के दौरान तत्काल देखभाल प्रदान करता हो ✔

(4) Only a person who provides care in a hospital / केवल अस्पताल में देखभाल प्रदान करने वाला व्यक्ति

Q.166 Which of the following terms refers to the process of gradually shifting an infant from a milk-based diet (breast milk or formula) to solid foods and other beverages?

निम्नलिखित में से कौन-सा शब्द, एक शिशु को धीरे धीरे दुग्ध आधारित आहार (स्तन्य दुग्ध या फॉर्मूला) से ठोस आहार और अन्य पेय पदार्थों की ओर स्थानांतरित करने की प्रक्रिया को संदर्भित करता है?

(1) Lightening / हल्कापन (Lightening)

(2) Sterilising / निर्जर्मीकरण (Sterilising)

(3) Quickening / द्रुत हिमीकरण (Quickening)

(4) Weaning / स्तन्यमोचन (Weaning) ✔

Q.167 Under the ESI Act 1948 and its amendments, which of the following is NOT included as part of the medical benefits provided to insured workers?

ESI अधिनियम 1948 और इसके संशोधनों के अंतर्गत, बीमित श्रमिकों को प्रदान किए जाने वाले चिकित्सा लाभ के हिस्से के रूप में निम्नलिखित में से किसे सम्मिलित नहीं किया जाता है?

(1) Hospitalisation in case of injury during work / कार्य के दौरान चोट लगने पर अस्पताल में भर्ती होना

(2) Paid sick leave for three months / तीन महीने के लिए सवेतन सिक लीव ✔

(3) Immunisation services / टीकाकरण सेवाएँ

(4) Family planning services / परिवार नियोजन सेवाएँ

Q.168 Which of the following measures prevents bagassosis?
निम्नलिखित में से कौन-सा उपाय इक्षुधूलिमयता (bagassosis) को रोकता है?

(1) Use of fly traps / मक्षिग्राही का उपयोग
(2) **Use of respiratory masks / श्वसन मास्क का उपयोग ✔**
(3) Use of chlorinated water / क्लोरीनीकृत जल का उपयोग
(4) Use of mosquito nets / मच्छरदानी का उपयोग

Q.169 Proper intake of niacin through diet can prevent which of the following diseases?
आहार के माध्यम से नियासिन (niacin) के उचित सेवन से निम्नलिखित में से किस रोग को रोका जा सकता है?

(1) Goitre / गलगंड (Goitre)
(2) Rickets / रिकेट्स (Rickets)
(3) **Pellagra / पेलाग्रा (Pellagra) ✔**
(4) Cretinism / क्रेटिनता (Cretinism)

Q.170 Which of the following food components is mainly affected by heat processing during food preparation?
निम्नलिखित में से कौन-सा खाद्य घटक आहार तैयार करने के दौरान ताप प्रसंस्करण से मुख्यतः प्रभावित होता है?

(1) **Vitamins / विटामिन ✔**
(2) Fats and oils / वसा और तेल
(3) Proteins / प्रोटीन
(4) Carbohydrates / कार्बोहाइड्रेट

Q.171 According to the Factories Act, 1948, which of the following provisions ensures occupational welfare by specifically targeting long working hours and physical exertion?
कारखाना अधिनियम, 1948 के अनुसार, निम्नलिखित में से कौन-सा प्रावधान विशेष रूप से लंबे कार्य समय और शारीरिक आयास को लक्षित करते हुए व्यावसायिक कल्याण सुनिश्चित करता है?

(1) **Provision of shelters, rest rooms and lunch rooms / आश्रय, विश्राम कक्ष और आहार कक्षों का प्रावधान ✔**
(2) Appointment of a factory inspector / कारखाना निरीक्षक की नियुक्ति
(3) Appointment of sweepers for cleanliness / स्वच्छता के लिए सफाईकर्मियों की नियुक्ति
(4) Use of automated machinery to reduce workload / कार्यभार कम करने के लिए स्वचालित मशीनरी का उपयोग

Q.172 Which of the following valves opens to allow blood to flow from the left atrium to the left ventricle and then closes to prevent blood from flowing back into the atrium during the heart's pumping cycle?
निम्नलिखित में से कौन-सा वाल्व, रक्त को वाम अलिंद से वाम निलय में प्रवाहित करने के लिए खुलता है और फिर हृदय के पंपन चक्र के दौरान रक्त को अलिंद में वापस प्रवाहित होने से रोकने के लिए बंद हो जाता है?

(1) Pulmonary valve / फुप्फुसी वाल्व
(2) Tricuspid valve / त्रिकपर्दी वाल्व
(3) **Bicuspid valve / द्विविलनी वाल्व ✔**
(4) Aortic valve / महाधमनी वाल्व

Q.173 Calculate the body mass index of a person weighing 50 kg with a height of 150 cm.
50 kg वजन और 150 cm ऊंचाई वाले व्यक्ति के बॉडी मास इंडेक्स (body mass index) की गणना करें।

(1) 25.15 kg/m^2
(2) 15.22 kg/m^2
(3) **22.22 kg/m^2 ✔**
(4) 30 kg/m^2

Q.174 Which of the following symptoms is NOT included in the 4Ds of pellagra?

निम्नलिखित में से कौन-सा लक्षण पेलाग्रा (pellagra) के 4D में शामिल नहीं है?

(1) Dementia / मनोभ्रंश (Dementia)

(2) **Delirium / प्रलाप (Delirium) ✔**

(3) Diarrhoea / अतिसार (Diarrhoea)

(4) Dermatitis / त्वक्शोथ (Dermatitis)

Q.175 Tinea pedis is a fungal infection of which of the following parts of the body?

टिनिया पेडिस (Tinea pedis) निम्नलिखित में से किस अंग का कवक संक्रमण (fungal infection) है?

(1) Head / सिर

(2) Nails / नाखून

(3) Body / शरीर

(4) **Foot / पाद ✔**

Q.176 When was the Prevention of Food Adulteration Act enacted by the Government of India?

भारत सरकार द्वारा खाद्य अपमिश्रण निवारण अधिनियम कब लागू किया गया था?

(1) **1954 ✔**

(2) 1964

(3) 1944

(4) 1974

Q.177 Which of the following processes is most associated with increasing the shelf life and nutritional stability of food items?

निम्नलिखित में से कौन-सी प्रक्रिया, खाद्य पदार्थों की निधानी आयु (shelf life) और पोषक स्थायित्व को बढ़ाने से सबसे अधिक संबंधित है?

(1) Extrusion / उत्सारण (Extrusion)

(2) **Freeze preservation / हिम परिरक्षण (Freeze preservation) ✔**

(3) Baking / बेकिंग (Baking)

(4) Ionising radiation / आयनकारी विकिरण (Ionising radiation)

Q.178 An N95 mask is a type of respirator that filters at least 95% of airborne particles. What does N stand for in the N95 mask?

N95 मास्क एक प्रकार का श्वसित्र है, जो वायु में मौजूद कम से कम 95% कणों को फ़िल्टर करता है। N95 मास्क में N का क्या तात्पर्य है?

(1) Not resistant to Corona / कोरोना के प्रति प्रतिरोधी नहीं (Not resistant to Corona)

(2) Not resistant to COVID / COVID के प्रति प्रतिरोधी नहीं (Not resistant to COVID)

(3) Not sensitive to COVID / COVID के प्रति संवेदनशील नहीं (Not sensitive to COVID)

(4) **Not resistant to oil / तेल के प्रति प्रतिरोधी नहीं (Not resistant to oil) ✔**

Q.179 Which nutrient is mainly present in potatoes?

आलू में मुख्यतः कौन-सा पोषक तत्व मौजूद होता है?

(1) Fat / वसा

(2) **Carbohydrate / कार्बोहाइड्रेट ✔**

(3) Vitamin / विटामिन

(4) Protein / प्रोटीन

Q.180 Which of the following is an example of an antipyretic drug?

निम्नलिखित में से कौन-सा ज्वरहर (antipyretic) दवा का उदाहरण है?

(1) Augmentin / ऑगमेंटिन (Augmentin)

(2) **Paracetamol / पैरासिटामोल (Paracetamol) ✔**

(3) Ondansetron / ओंडान्सेट्रॉन (Ondansetron)

(4) Azithromycin / एज़िथ्रोमाइसिन (Azithromycin)

Q.181 What is odynophagia?

ओडिनोफेगिया (odynophagia) क्या है?

(1) Difficulty in inhalation / अभिश्वसन (inhalation) में कठिनाई होना

(2) Difficulty in digestion / पाचन में कठिनाई होना

(3) **Pain during swallowing / निगलने के दौरान दर्द होना ✔**

(4) Pain during micturition / मूत्रण (micturition) के दौरान दर्द होना

Q.182 The disaster management cycle is a framework that outlines the phases of disaster management, which includes all of the following major phases EXCEPT:

आपदा प्रबंधन चक्र एक फ्रेमवर्क है, जो आपदा प्रबंधन के चरणों को रेखांकित करता है, जिसमें किस एक को छोड़कर निम्नलिखित सभी प्रमुख चरण शामिल होते हैं?

(1) **Manipulation / प्रहस्तन (manipulation) ✔**

(2) Recovery / पुनर्बहाली (recovery)

(3) Mitigation / शमन (mitigation)

(4) Response / अनुक्रिया (response)

Q.183 Which of the following principles of primary health care aims to provide universal access to health services regardless of the ability to pay, focusing on reducing health inequalities within and between communities?

प्राथमिक स्वास्थ्य देखभाल के निम्नलिखित में से किस सिद्धांत का उद्देश्य, समुदायों के भीतर और उनके बीच स्वास्थ्य असमानताओं को दूर करने पर ध्यान केंद्रित करते हुए, चाहे उनकी भुगतान करने की क्षमता जो भी हो, स्वास्थ्य सेवाओं तक सार्वभौमिक पहुंच प्रदान करना है?

(1) Use of appropriate technology / उचित प्रौद्योगिकी का उपयोग (Use of appropriate technology)

(2) **Equitable distribution / साम्यिक वितरण (Equitable distribution) ✔**

(3) Community participation / सामुदायिक भागीदारी (Community participation)

(4) Intersectoral coordination / अंतरक्षेत्रीय समन्वय (Intersectoral coordination)

Q.184 What is the normal resting pulse rate for adults?

वयस्क व्यक्तियों के लिए सामान्य विश्रान्ति नाड़ी दर कितनी होती है?

(1) 80 to 120 beats per minute / 80 से 120 स्पंद प्रति मिनट

(2) 50 to 72 beats per minute / 50 से 72 स्पंद प्रति मिनट

(3) **60 to 100 beats per minute / 60 से 100 स्पंद (beats) प्रति मिनट ✔**

(4) 45 to 75 beats per minute / 45 से 75 स्पंद प्रति मिनट

Q.185 Which of the following is most essential for effective teamwork and time management in a professional setting?

व्यावसायिक परिवेश में प्रभावी टीमवर्क और समय प्रबंधन के लिए निम्नलिखित में से क्या सबसे आवश्यक है?

(1) Avoiding teamwork and focusing only on individual tasks / टीमवर्क से बचना और केवल व्यक्तिगत कार्यों पर ध्यान केंद्रित करना

(2) Waiting until the last moment to complete tasks / कार्य पूरा करने के लिए आखिरी क्षण तक प्रतीक्षा करना

(3) **Clear communication, collaboration and prioritisation of tasks / स्पष्ट संचार, सहयोग और कार्यों की प्राथमिकता तय करना ✔**

(4) Ignoring deadlines and working without coordination / समयसीमा की अनदेखी करना और समन्वय के बिना काम करना

Q.186 Which of the following is a key aspect of professional ethics in a code of conduct?

निम्नलिखित में से कौन-सा, आचार संहिता में प्रोफेशनल एथिक्स (professional ethics) का प्रमुख पहलू है?

(1) Avoiding accountability for unethical actions / अनैतिक कार्यों के लिए जवाबदेही से बचना

(2) Ignoring workplace rules and policies / कार्यस्थल के नियमों और नीतियों की उपेक्षा करना

(3) Prioritising personal interests over professional responsibilities / पेशेवर उत्तरदायित्वों के स्थान पर व्यक्तिगत हितों को प्राथमिकता देना

(4) **Treating colleagues and clients with respect and fairness / सहकर्मियों और ग्राहकों के साथ सम्मान और निष्पक्षता से पेश आना ✔**

Q.187 All of the following are principles of health education EXCEPT:

निम्नलिखित में से किस एक को छोड़कर शेष सभी, स्वास्थ्य शिक्षा के सिद्धांत हैं?

(1) Reinforcement and learning by doing / सुदृढ़ीकरण और करके सीखना

(2) Credibility and motivation / विश्वसनीयता और अभिप्रेरण

(3) **Manual skills and prejudice / हस्त कौशल और पूर्वाग्रह ✔**

(4) Setting an example and building good human relations / उदाहरण स्थापित करना और अच्छे मानवीय संबंध बनाना

Q.188 Which of the following terms is used for the omission to do something which a reasonable person, guided by those considerations which ordinarily regulate the conduct of human affairs, would do, or doing something which a prudent and reasonable person would not do?

निम्नलिखित में से कौन-सा शब्द किसी ऐसी चीज को न करने के लिए प्रयुक्त होता है जिसे एक विवेकशील व्यक्ति, उन विचारों के आधार पर जो सामान्यतः मानवीय मामलों को विनियमित करते हैं, करेगा, या किसी ऐसी चीज को करने के लिए प्रयुक्त होता है जिसे एक सविवेक और विवेकशील व्यक्ति नहीं करेगा?

(1) Battery / बैटरी (Battery)

(2) Assault / तीखी आलोचना (Assault)

(3) Libel / मानहानि (Libel)

(4) **Negligence / उपेक्षा (Negligence) ✔**

Q.189 Which term is used to describe bleeding from the nose, whether the bleeding is spontaneous or due to nose picking or some trauma?

नासिका से रक्तस्राव को वर्णित करने के लिए किस शब्द का उपयोग किया जाता है, चाहे रक्तस्राव स्वतः हो या नाक खुजलाने या किसी अभिघात के कारण हो?

(1) **Epistaxis / नासारक्तस्रवण (Epistaxis) ✔**

(2) Ptyalism / अतिलालास्रावता (Ptyalism)

(3) Otalgia / कर्णार्ति (Otalgia)

(4) Bruxism / निद्रादंतचवर्ण (Bruxism)

Q.190 What are the main signs of hypovolemic shock?

अल्पआयतनरक्तता आघात (hypovolemic shock) के मुख्य लक्षण क्या हैं?

(1) Tachycardia and Hypotension / हृद्क्षिप्रता और अल्परक्तदाब (Tachycardia and Hypotension) ✔

(2) Tachycardia and Hypertension / हृद्क्षिप्रता और अतिरक्तदाब (Tachycardia and Hypertension)

(3) Bradycardia and Hypertension / हृदमंदता और अतिरक्तदाब (Bradycardia and Hypertension)

(4) Bradycardia and Hypotension / हृदमंदता और अल्परक्तदाब (Bradycardia and Hypotension)

Q.191 Which of the following statements is correct regarding life expectancy at birth?

जन्म के समय जीवन प्रत्याशा के संबंध में निम्नलिखित में से कौन-सा कथन सही है?

(1) It does not include infant mortality and focuses only on adult survival. / इसमें शिशु मृत्यु दर को सम्मिलित नहीं किया जाता है और केवल वयस्क उत्तरजीविता पर ध्यान केंद्रित किया जाता है।

(2) It has no relation to socio-economic development. / इसका सामाजिक-आर्थिक विकास से कोई संबंध नहीं है।

(3) It is highly influenced by infant mortality. / यह शिशु मृत्यु दर से अत्यधिक प्रभावित होती है। ✔

(4) It considers only those people who survive beyond childhood. / इसमें केवल उन लोगों पर विचार किया जाता है, जो बाल्यावस्था के बाद जीवित रहते हैं।

Q.192 Which of the following statements best reflects a comprehensive understanding of disaster risk assessment according to the basic principles of disaster emergency management?

निम्नलिखित में से कौन-सा कथन, आपदा आपातकालीन प्रबंधन के मूल सिद्धांतों के अनुसार आपदा जोखिम मूल्यांकन की व्यापक समझ को सर्वोत्तम रूप से दर्शाता है?

(1) Risk can be reduced by reducing community vulnerability and enhancing capacity through means such as risk mapping, transect walks and social analysis. / सामुदायिक भेद्यता को कम करके और जोखिम मानचित्रण, ट्रांसेक्ट वॉक (transect walks) और सामाजिक विश्लेषण जैसे माध्यमों का उपयोग करके क्षमता को बढ़ाकर जोखिम को कम किया जा सकता है। ✔

(2) Vulnerability and hazard are synonymous and affect disaster outcomes equally. / भेद्यता और संकट समानार्थी हैं और आपदा परिणामों को समान रूप से प्रभावित करते हैं।

(3) Risk is a fixed outcome of hazards and cannot be reduced by human intervention. / जोखिम, संकटों का एक निश्चित परिणाम है और इसे मानवीय हस्तक्षेप से कम नहीं किया जा सकता।

(4) Disasters are entirely natural and cannot be prevented; they can only be responded to. / आपदाएं पूर्णतः प्राकृतिक होती हैं और इन्हें रोका नहीं जा सकता, केवल इस पर प्रतिक्रिया की जा सकती है।

Q.193 Which of the following health committees was set up in 1972, and is also known as the Committee on Multipurpose Workers under Health and Family Planning?

निम्नलिखित में से किस स्वास्थ्य समिति की स्थापना 1972 में की गई थी, जिसे स्वास्थ्य एवं परिवार नियोजन के तहत बहुउद्देशीय कार्यकर्ताओं की समिति के रूप में भी जाना जाता है?

(1) Bhore Committee / भोरे समिति

(2) Mudaliar Committee / मुदलियार समिति

(3) Mukherjee Committee / मुखर्जी समिति

(4) Kartar Singh Committee / करतार सिंह समिति ✔

Q.194 Which of the following is used to measure the recumbent length of infants below one year of age?

एक वर्ष से कम आयु के शिशुओं की श्यान लंबाई (recumbent length) मापने के लिए निम्नलिखित में से किसका उपयोग किया जाता है?

(1) Infantometer / इन्फैंटोमीटर (Infantometer) ✔

(2) Tonometer / टोनोमीटर (Tonometer)

(3) Calorimeter / कैलोरीमीटर (Calorimeter)

(4) Shakir tape / शाकिर टेप (Shakir tape)

Q.195 Which of the following types of hospitals mainly provides tertiary care?

निम्नलिखित में से किस प्रकार का अस्पताल मुख्य रूप से तृतीयक देखभाल प्रदान करता है?

(1) Primary Health Centre / प्राथमिक स्वास्थ्य केंद्र

(2) Community Health Centre / सामुदायिक स्वास्थ्य केंद्र

(3) **Medical College Hospital / मेडिकल कॉलेज अस्पताल ✔**

(4) Sub-centre / उपकेंद्र

Q.196 Which of the following is the best strategy to prevent scope creep in a project?

निम्नलिखित में से कौन-सी, किसी प्रोजेक्ट में स्कोप क्रिप (scope creep) को रोकने के लिए सर्वोत्तम रणनीति है?

(1) Allowing unlimited changes without documentation / दस्तावेजीकरण के बिना असीमित परिवर्तनों की अनुमति देना

(2) Ignoring stakeholder feedback and proceeding without adjustments / हितधारकों के फीडबैक की उपेक्षा करना और समायोजन के बिना आगे बढ़ना

(3) **Clearly defining the project scope and implementing change control processes / प्रोजेक्ट के दायरे को स्पष्ट रूप से परिभाषित करना और परिवर्तन नियंत्रण प्रक्रियाओं को लागू करना ✔**

(4) Expanding the project scope without considering time and budget constraints / समय और बजट की बाधाओं पर विचार किए बिना प्रोजेक्ट के दायरे का विस्तार करना

Q.197 Where is the headquarters of the National Institute of Disaster Management located?

राष्ट्रीय आपदा प्रबंधन संस्थान के मुख्यालय कहाँ स्थित हैं?

(1) **New Delhi / नई दिल्ली ✔**

(2) Mumbai / मुंबई

(3) Bengaluru / बेंगलुरु

(4) Kolkata / कोलकाता

Q.198 Which of the following is a key ethical principle that emphasises the obligation to keep information private and secure?

निम्नलिखित में से कौन-सा एक प्रमुख नैतिक सिद्धांत है, जो सूचना को निजी और सुरक्षित रखने के दायित्व पर बल देता है?

(1) Beneficence / उपकार

(2) Fidelity / निष्ठा

(3) Veracity / सत्यवादिता

(4) **Confidentiality / गोपनीयता ✔**

Q.199 The process of deciding in advance 'what to do, how to do it, when to do it and who is to do it' is called _____.

पहले से यह तय करने की प्रक्रिया 'क्या करना है, कैसे करना है, कब करना है और किसे करना है', _____ कहलाती है।

(1) **Planning / योजना (Planning) ✔**

(2) Coordinating / समन्वय (Coordinating)

(3) Directing / निर्देशक (Directing)

(4) Organising / आयोजन (Organising)

Q.200 In the NHANES anthropometry protocol, if a measurement entered in the ISIS system falls outside the pre-programmed edit range, what should the recorder do?

NHANES एंथ्रोपोमेट्री प्रोटोकॉल (anthropometry protocol) में, यदि ISIS प्रणाली में दर्ज मापन प्री-प्रोग्राम्ड एडिट रेंज से बाहर हो, तो रिकॉर्डर को क्या करना चाहिए?

(1) The recorder should ask the examiner to verify the measurement before proceeding. / रिकॉर्डर को आगे बढ़ने से पहले परीक्षक से मापन को सत्यापित करने के लिए कहना चाहिए। ✔

(2) The recorder should mark the value as invalid and report it to the supervisor. / रिकॉर्डर को मान को अमान्य के रूप में चिह्नित करना चाहिए तथा इसकी सूचना पर्यवेक्षक को देनी चाहिए।

(3) The recorder should delete the value and skip the measurement. / रिकॉर्डर को वैल्यू डिलीट कर देनी चाहिए और मापन को छोड़ देना चाहिए।

(4) The recorder should adjust the value to fall within the expected range. / रिकॉर्डर को अपेक्षित रेंज के भीतर आने के लिए वैल्यू को एडजस्ट करना चाहिए।

Answer Key / उत्तर कुंजी

1 3	**2** 4	**3** 1	**4** 4	**5** 4	**6** 3	**7** 2	**8** 1	**9** 4	**10** 2	**11** 1	**12** 2	**13** 4	**14** 2	**15** 3
16 4	**17** 4	**18** 3	**19** 1	**20** 4	**21** 2	**22** 2	**23** 3	**24** 4	**25** 4	**26** 3	**27** 1	**28** 4	**29** 3	**30** 4
31 1	**32** 2	**33** 3	**34** 1	**35** 1	**36** 2	**37** 1	**38** 2	**39** 4	**40** 1	**41** 4	**42** 1	**43** 2	**44** 2	**45** 3
46 3	**47** 1	**48** 2	**49** 2	**50** 2	**51** 4	**52** 3	**53** 4	**54** 2	**55** 2	**56** 2	**57** 3	**58** 3	**59** 3	**60** 4
61 3	**62** 4	**63** 3	**64** 4	**65** 3	**66** 1	**67** 1	**68** 1	**69** 4	**70** 4	**71** 3	**72** 2	**73** 4	**74** 3	**75** 4
76 4	**77** 1	**78** 1	**79** 1	**80** 1	**81** 2	**82** 1	**83** 2	**84** 4	**85** 2	**86** 4	**87** 2	**88** 1	**89** 1	**90** 3
91 4	**92** 2	**93** 1	**94** 4	**95** 2	**96** 3	**97** 4	**98** 2	**99** 2	**100** 1	**101** 2	**102** 4	**103** 1	**104** 2	**105** 2
106 1	**107** 2	**108** 2	**109** 2	**110** 2	**111** 1	**112** 3	**113** 3	**114** 1	**115** 3	**116** 2	**117** 2	**118** 3	**119** 4	**120** 2
121 3	**122** 2	**123** 1	**124** 4	**125** 2	**126** 4	**127** 1	**128** 1	**129** 1	**130** 2	**131** 2	**132** 1	**133** 1	**134** 1	**135** 2
136 4	**137** 4	**138** 3	**139** 3	**140** 1	**141** 3	**142** 3	**143** 4	**144** 3	**145** 3	**146** 4	**147** 2	**148** 4	**149** 3	**150** 3
151 2	**152** 3	**153** 1	**154** 4	**155** 1	**156** 1	**157** 4	**158** 2	**159** 4	**160** 2	**161** 3	**162** 1	**163** 4	**164** 3	**165** 3
166 4	**167** 2	**168** 2	**169** 3	**170** 1	**171** 1	**172** 3	**173** 3	**174** 2	**175** 4	**176** 1	**177** 2	**178** 4	**179** 2	**180** 2
181 3	**182** 1	**183** 2	**184** 3	**185** 3	**186** 4	**187** 3	**188** 4	**189** 1	**190** 1	**191** 3	**192** 1	**193** 4	**194** 1	**195** 3
196 3	**197** 1	**198** 4	**199** 1	**200** 1										

QuickSarkari.com | WhatsApp Channel | Telegram: t.me/quick_sarkari

GOVT. OF NCT OF DELHI
Delhi Subordinate Services Selection Board
FC-18, Institutional Area, Karkardooma, Delhi – 110092.
www.dsssb.delhigovt.nic.in

Participant ID	
Participant Name	
Test Center Name	
Test Date	24/06/2025
Test Time	9:00 AM - 11:00 AM
Subject	Vaccinator

Section : **General intelligence and Reasoning Ability**

Q.1 निम्नलिखित अक्षर और प्रतीक श्रृंखला का संदर्भ लीजिए और नीचे दिए गए प्रश्न का उत्तर दीजिए। गिनती केवल बाएं से दाएं की जानी चाहिए।

(बाएं) J @ # $ G & N € J A N $ X @ £ * @ * U & O P (दाएं)

ऐसे कितने प्रतीक हैं जिनके ठीक पहले एक अक्षर है और ठीक बाद भी एक अक्षर है?

Ans
✗ 1. छह
✗ 2. तीन
✓ 3. चार
✗ 4. पाँच

Question ID : **441009178843**
Option 1 ID : **441009706887**
Option 2 ID : **441009706886**
Option 3 ID : **441009706884**
Option 4 ID : **441009706885**

QuickSarkari.com | WhatsApp Channel | Telegram: t.me/quick_sarkari

Q.2 जब दर्पण को दर्शाए गए अनुसार MN पर रखा जाता है, तो दिए गए संयोजन के सही दर्पण प्रतिबिंब का चयन कीजिए।



Ans

✗ 1. 

✗ 2. 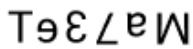

✗ 3. 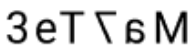

✓ 4. 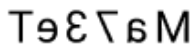

Question ID : **441009178885**
Option 1 ID : **441009707055**
Option 2 ID : **441009707053**
Option 3 ID : **441009707054**
Option 4 ID : **441009707052**

Q.3 एक निश्चित तर्क का अनुसरण करते हुए, 8 का संबंध 65 से है। उसी तर्क का अनुसरण करते हुए, 11 का संबंध 122 से है। उसी तर्क का अनुसरण करते हुए, 12 का संबंध दिए गए विकल्पों में से किससे है?

(नोट: संख्याओं को उनके घटक अंकों में तोड़े बिना, संक्रियाएँ पूर्ण संख्याओं पर की जानी चाहिए। उदाहरण के लिए 13 को लीजिए - 13 पर संक्रियाएँ जैसे कि 13 में जोड़ना/घटाना/गुणा करना 13 पर किया जा सकता है। 13 को 1 और 3 में तोड़ना और फिर 1 और 3 पर गणितीय संक्रियाएँ करने की अनुमति नहीं है।)

Ans

✓ 1. 145

✗ 2. 192

✗ 3. 156

✗ 4. 169

Question ID : **441009178830**
Option 1 ID : **441009706832**
Option 2 ID : **441009706835**
Option 3 ID : **441009706833**
Option 4 ID : **441009706834**

QuickSarkari.com | WhatsApp Channel | Telegram: t.me/quick_sarkari

Q.4 अंग्रेजी वर्णमाला क्रम के आधार पर EIMQ का संबंध एक निश्चित तरीके से PUZE से है। उसी प्रकार, WEMU का संबंध HQZI से है। उसी तर्क का अनुसरण करते हुए, DOZK का संबंध निम्नलिखित में से किस विकल्प से है?

Ans
✗ 1. OBMY
✗ 2. OANY
✗ 3. OBNY
✓ 4. OAMY

Question ID : **441009178882**
Option 1 ID : **441009707042**
Option 2 ID : **441009707041**
Option 3 ID : **441009707043**
Option 4 ID : **441009707040**

Q.5 अंग्रेजी वर्णमाला क्रम के आधार पर एक निश्चित प्रकार से LINK का संबंध KKLL से है। उसी प्रकार, MOST का संबंध TQQM से है। समान तर्क का अनुसरण करते हुए, FROG का संबंध दिए गए विकल्पों में से किससे है?

Ans
✗ 1. HORE
✗ 2. GPQF
✗ 3. HPQE
✓ 4. GTMF

Question ID : **441009178866**
Option 1 ID : **441009706978**
Option 2 ID : **441009706976**
Option 3 ID : **441009706977**
Option 4 ID : **441009706979**

Q.6 Refer to the following number and symbol series and answer the question that follows. Counting to be done from left to right only.

(Left) 4 * & @ & * 8 ! 7 @ 9 ^ 2 3 $ 1 8 % 3 ^ 5 1 # 6 7 (Right)

If all the symbols are dropped from the series, which of the following will be seventh from the right?

Ans
✗ 1. 2
✗ 2. 3
✓ 3. 1
✗ 4. 8

Question ID : **441009178840**
Option 1 ID : **441009706873**
Option 2 ID : **441009706874**
Option 3 ID : **441009706872**
Option 4 ID : **441009706875**

QuickSarkari.com | WhatsApp Channel | Telegram: t.me/quick_sarkari

Q.7 निम्नलिखित चार अक्षर-समूह युग्मों में से तीन एक निश्चित प्रकार से समान हैं और इस तरह से एक ग्रुप बनाते हैं। कौन-सा अक्षर-समूह युग्म उस ग्रुप से संबंधित नहीं है?
(नोट: असंगत अक्षर-समूह युग्म, व्यंजनों/स्वरों की संख्या या उनकी स्थिति पर आधारित नहीं है।)

Ans
✗ 1. GY - IB
✓ 2. OE - QI
✗ 3. AV - CY
✗ 4. MI - OL

Question ID : **441009178850**
Option 1 ID : **441009706913**
Option 2 ID : **441009706914**
Option 3 ID : **441009706915**
Option 4 ID : **441009706912**

Q.8 P, Q, R, S, T, U और V एक गोल मेज के परितः केंद्र की ओर अभिमुख होकरबैठे हैं। P के बाएं से गिने जाने पर P और T के मध्य केवल तीन व्यक्ति बैठे हैं। R के दाएं से गिने जाने पर V और R के मध्य केवल तीन व्यक्ति बैठे हैं। S, V के ठीक दाएं पड़ोस में बैठा है। R और T के दोनों के ठीक पड़ोस में U बैठा है। V के दाएं से गिनने पर, P और V के मध्य कितने व्यक्ति बैठे हैं?

Ans
✓ 1. एक
✗ 2. दो
✗ 3. तीन
✗ 4. चार

Question ID : **441009178849**
Option 1 ID : **441009706908**
Option 2 ID : **441009706909**
Option 3 ID : **441009706910**
Option 4 ID : **441009706911**

Q.9 D, E, F, G, H, I, और P में से प्रत्येक का साक्षात्कार सोमवार से शुरू होकर रविवार को समाप्त होने वाले एक ही सप्ताह के अलग-अलग दिन होता है। G और E के मध्य केवल दो लोगों का साक्षात्कार है। E और H के मध्य केवल दो लोगों का साक्षात्कार है। D और P के मध्य केवल दो लोगों का साक्षात्कार है। D के बाद केवल H का साक्षात्कार है। I का साक्षात्कार F से पहले किसी दिन है। I और F के मध्य कितने लोगों का साक्षात्कार है?

Ans
✗ 1. तीन
✗ 2. एक
✗ 3. चार
✓ 4. दो

Question ID : **441009178855**
Option 1 ID : **441009706933**
Option 2 ID : **441009706935**
Option 3 ID : **441009706932**
Option 4 ID : **441009706934**

QuickSarkari.com | WhatsApp Channel | Telegram: t.me/quick_sarkari

Q.10 अंग्रेजी वर्णमाला क्रम के आधार पर, निम्नलिखित चार अक्षर-समूह युग्मों में से तीन एक निश्चित तरीके से एकसमान हैं और इस प्रकार एक ग्रुप बनाते हैं। कौन-सा युग्म उस ग्रुप से संबंधित नहीं है?
(नोट: असंगत अक्षर-समूह युग्म, व्यंजनों/स्वरों की संख्या या उनकी स्थिति पर आधारित नहीं है।)

Ans
✗ 1. PR - QS
✓ 2. KL - LN
✗ 3. BD - CE
✗ 4. EG - FH

Question ID : **441009178869**
Option 1 ID : **441009706991**
Option 2 ID : **441009706990**
Option 3 ID : **441009706988**
Option 4 ID : **441009706989**

Q.11 यदि संख्या 71025468 के प्रत्येक विषम अंक में 1 जोड़ा जाए, तो इस प्रकार निर्मित संख्या में कितने अंकों की एक से अधिक बार पुनरावृत्ति होगी?

Ans
✓ 1. तीन
✗ 2. एक भी नहीं
✗ 3. दो
✗ 4. एक

Question ID : **441009178832**
Option 1 ID : **441009706843**
Option 2 ID : **441009706840**
Option 3 ID : **441009706842**
Option 4 ID : **441009706841**

Q.12 एक निश्चित कूट भाषा में, 'ROTE' को '3719' के रूप में कूटबद्ध किया गया है और 'TOUR' को '1237' के रूप में कूटबद्ध किया गया है। दी गई कूट भाषा में 'U' के लिए कूट क्या है?

Ans
✗ 1. 1
✓ 2. 2
✗ 3. 7
✗ 4. 3

Question ID : **441009178857**
Option 1 ID : **441009706940**
Option 2 ID : **441009706941**
Option 3 ID : **441009706943**
Option 4 ID : **441009706942**

QuickSarkari.com | WhatsApp Channel | Telegram: t.me/quick_sarkari

Q.13 यदि संख्या 2543678 के प्रत्येक सम अंक में 1 जोड़ा जाता है तथा प्रत्येक विषम अंक में से 2 घटाया जाता है, तो बाईं ओर से दूसरे अंक तथा दाईं ओर से दूसरे अंक का योगफल कितना होगा?

Ans
✗ 1. 6
✗ 2. 9
✗ 3. 4
✓ 4. 8

Question ID : **441009178831**
Option 1 ID : **441009706837**
Option 2 ID : **441009706839**
Option 3 ID : **441009706836**
Option 4 ID : **441009706838**

Q.14 दी गई शृंखला में प्रश्न चिह्न (?) के स्थान पर क्या आना चाहिए?

345 290 238 189 143 ?

Ans
✗ 1. 116
✓ 2. 100
✗ 3. 126
✗ 4. 91

Question ID : **441009178837**
Option 1 ID : **441009706862**
Option 2 ID : **441009706861**
Option 3 ID : **441009706860**
Option 4 ID : **441009706863**

Q.15 एक निश्चित कूट भाषा में, 'EURO' को '1375' के रूप में कूटबद्ध किया जाता है और 'SALE' को '2438' के रूप में कूटबद्ध किया जाता है। दी गई कूट भाषा में 'E' के लिए कूट क्या है?

Ans
✗ 1. 7
✗ 2. 8
✓ 3. 3
✗ 4. 2

Question ID : **441009178874**
Option 1 ID : **441009707010**
Option 2 ID : **441009707011**
Option 3 ID : **441009707008**
Option 4 ID : **441009707009**

Q.16 यदि शब्द 'PECTORALS' के प्रत्येक अक्षर को अंग्रेजी वर्णमाला क्रम में व्यवस्थित किया जाए, तो कितने अक्षरों की स्थिति अपरिवर्तित रहेगी?

Ans
✗ 1. दो
✗ 2. तीन
✗ 3. किसी की भी नहीं
✓ 4. एक

Question ID : **441009178852**
Option 1 ID : **441009706922**
Option 2 ID : **441009706923**
Option 3 ID : **441009706920**
4 ID : **441009706921**

Q.17 दिए गए कथनों और निष्कर्षों को ध्यान से पढ़ें। कथनों में दी गई जानकारी को सत्य मानते हुए, भले ही वह सामान्य रूप से ज्ञात तथ्यों से भिन्न प्रतीत हो, निर्धारित करें कि कौन-से निष्कर्ष दिए गए कथनों का तार्किक रूप से अनुसरण करते हैं।

कथन:

कोई पेंसिल, वायलिन नहीं है।

कुछ छड़ियाँ, पेंसिल हैं।

निष्कर्ष:

(I) कोई वायलिन, छड़ियाँ नहीं हैं।

(II) कुछ छड़ियाँ, वायलिन हैं।

Ans
✗ 1. निष्कर्ष (I) और (II) दोनों अनुसरण करते हैं।
✗ 2. केवल निष्कर्ष (II) अनुसरण करता है।
✗ 3. केवल निष्कर्ष (I) अनुसरण करता है।
✓ 4. न तो निष्कर्ष (I) और न ही (II) अनुसरण करता है।

Question ID : **441009178871**
Option 1 ID : **441009706999**
Option 2 ID : **441009706997**
Option 3 ID : **441009706996**
Option 4 ID : **441009706998**

Q.18 O, P, R, S, Y और Z एक ही इमारत के छह अलग-अलग तलों पर रहते हैं। इमारत में सबसे निचले तल का क्रमांक 1 है, उसके ऊपर के तल का क्रमांक 2 है और इसी तरह सबसे ऊपर के तल का क्रमांक 6 है। Y तल क्रमांक 5 पर रहता है। O, Y के ऊपर किसी तल पर रहता है। S के नीचे केवल Z रहता है। P सम संख्या वाले तल पर रहता है। R के नीचे कितने लोग रहते हैं?

Ans
✗ 1. एक
✗ 2. तीन
✓ 3. दो
✗ 4. चार

Question ID : **441009178853**
Option 1 ID : **441009706924**
Option 2 ID : **441009706926**
Option 3 ID : **441009706925**
Option 4 ID : **441009706927**

QuickSarkari.com | WhatsApp Channel | Telegram: t.me/quick_sarkari

Q.19 एक निश्चित कूट भाषा में,
P # Q का अर्थ है कि 'P, Q की पत्नी है',
P @ Q का अर्थ है कि 'P, Q का पिता है',
P + Q का अर्थ है कि 'P, Q की बहन है',
और P – Q का अर्थ है कि 'P, Q का भाई है'।

उपरोक्त के आधार पर, यदि 'E – F + G # Z @ Q' है, तो E का Q से क्या संबंध है?

Ans
✔ 1. माता का भाई
✘ 2. माता का पिता
✘ 3. माता की बहन
✘ 4. माता की माता

Question ID : **441009178878**
Option 1 ID : **441009707024**
Option 2 ID : **441009707027**
Option 3 ID : **441009707025**
Option 4 ID : **441009707026**

Q.20 P, Q, R, S, T, U और V एक गोल मेज के परितः केंद्र की ओर अभिमुख होकर बैठे हैं। R के बाएं से गिनने पर P और R के बीच केवल एक व्यक्ति बैठा है। V, Q के दाएं तीसरे स्थान पर बैठा है। T, U के बाएं तीसरे स्थान पर बैठा है। V, T के ठीक दाएं पड़ोस में बैठा है। S, T का निकटतम पड़ोसी नहीं है। Q के दाएं से गिनने पर Q और S के बीच कितने व्यक्ति बैठे हैं?

Ans
✘ 1. दो
✘ 2. एक
✘ 3. चार
✔ 4. तीन

Question ID : **441009178847**
Option 1 ID : **441009706901**
Option 2 ID : **441009706900**
Option 3 ID : **441009706903**
Option 4 ID : **441009706902**

Section : **General Awareness**

Q.1 30 अक्टूबर 2024 तक प्राप्त जानकारी के अनुसार, अंतर्राष्ट्रीय न्यायालय के अध्यक्ष के रूप में किसे चुना गया?

Ans
✘ 1. न्यायाधीश पीटर टॉमका (Judge Peter Tomka)
✔ 2. न्यायाधीश नवाफ सलाम (Judge Nawaf Salam)
✘ 3. न्यायाधीश रॉबर्टो कैलदास (Judge Roberto Caldas)
✘ 4. न्यायाधीश अब्दुलकावी अहमद यूसुफ (Judge Abdulqawi Ahmed Yusuf)

Question ID : **441009185387**
Option 1 ID : **441009732871**
Option 2 ID : **441009732869**
Option 3 ID : **441009732870**
Option 4 ID : **441009732868**

QuickSarkari.com | WhatsApp Channel | Telegram: t.me/quick_sarkari

Q.2 प्रजनन के दौरान, कोशिका का कौन-सा भाग एक नए जीव का निर्माण करता है?

Ans ✗ 1. डी.एन.ए.

✓ 2. युग्मनज

✗ 3. उल्वीय कोश

✗ 4. गुणसूत्र

Question ID : **441009185415**
Option 1 ID : **441009732981**
Option 2 ID : **441009732983**
Option 3 ID : **441009732982**
Option 4 ID : **441009732980**

Q.3 अंग्रेजों को ललकारने वाले महान आदिवासी नेता वीर लाखन नायक को किस वर्ष फाँसी दी गई थी?

Ans ✗ 1. 1941

✗ 2. 1942

✓ 3. 1943

✗ 4. 1940

Question ID : **441009185442**
Option 1 ID : **441009733089**
Option 2 ID : **441009733090**
Option 3 ID : **441009733091**
Option 4 ID : **441009733088**

Q.4 कांगड़ा एवं कुल्लू घाटियाँ किस राज्य में स्थित हैं?

Ans ✗ 1. पश्चिम बंगाल

✗ 2. अरुणाचल प्रदेश

✗ 3. सिक्किम

✓ 4. हिमाचल प्रदेश

Question ID : **441009185436**
Option 1 ID : **441009733067**
Option 2 ID : **441009733066**
Option 3 ID : **441009733065**
Option 4 ID : **441009733064**

Q.5 किसी डोरी, रस्सी, केबल या तार को एक सिरे से कस कर खींचने पर उसमें किस प्रकार का बल संचारित होता है?

Ans ✗ 1. वायु प्रतिरोध बल

✗ 2. घर्षण बल

✗ 3. अनुप्रयुक्त बल

✓ 4. तनाव बल

Question ID : **441009185419**
Option 1 ID : **441009732999**
Option 2 ID : **441009732998**
Option 3 ID : **441009732996**
Option 4 ID : **441009732997**

QuickSarkari.com | WhatsApp Channel | Telegram: t.me/quick_sarkari

Q.6 निम्नलिखित कथनों पर विचार कीजिए।

1. वह किसी भी वर्ग में विश्व नंबर 1 रैंक प्राप्त करने वाले पहले भारतीय पहलवान हैं।
2. वह चार विश्व चैम्पियनशिप पदक जीतने वाले पहले भारतीय हैं।
3. घुटने की चोट से उबरने के दौरान उन्होंने टोक्यो 2020 ओलंपिक में कांस्य पदक जीता।

ये कथन निम्नलिखित में से किस व्यक्तित्व का वर्णन करते हैं?

Ans
✗ 1. योगेश्वर दत्त
✗ 2. विनेश फोगाट
✓ 3. बजरंग पुनिया
✗ 4. सुशील कुमार

Question ID : **441009185397**
Option 1 ID : **441009732909**
Option 2 ID : **441009732911**
Option 3 ID : **441009732910**
Option 4 ID : **441009732908**

Q.7 भारतीय संविधान के अनुच्छेद 124 से 147 तक में भारत के _____ की संरचना एवं कार्यों का उल्लेख किया गया है।

Ans
✓ 1. सुप्रीम कोर्ट
✗ 2. रिजर्व बैंक
✗ 3. वित्त आयोग
✗ 4. निर्वाचन आयोग

Question ID : **441009185448**
Option 1 ID : **441009733113**
Option 2 ID : **441009733112**
Option 3 ID : **441009733115**
Option 4 ID : **441009733114**

Q.8 भारत में कृषि के संदर्भ में, 'पामलू' क्या है?

Ans
✗ 1. स्थानीय उपकरण का नाम
✗ 2. गेहूँ की एक किस्म का नाम
✗ 3. स्थानीय सिंचाई प्रणाली का नाम
✓ 4. स्लैश एंड बर्न कृषि का नाम

Question ID : **441009185437**
Option 1 ID : **441009733069**
Option 2 ID : **441009733068**
Option 3 ID : **441009733071**
Option 4 ID : **441009733070**

QuickSarkari.com | WhatsApp Channel | Telegram: t.me/quick_sarkari

Q.9 भारत में वित्तीय वर्ष की अवधि क्या होती है?

Ans
✗ 1. 1 जनवरी से 31 दिसंबर
✗ 2. 1 जून से 31 मई
✓ 3. 1 अप्रैल से 31 मार्च
✗ 4. 1 जुलाई से 30 जून

Question ID : **441009185425**
Option 1 ID : **441009733021**
Option 2 ID : **441009733022**
Option 3 ID : **441009733023**
Option 4 ID : **441009733020**

Q.10 चेक एवं नकदी में क्या अंतर है?

Ans
✗ 1. दोनों में कोई अंतर नहीं है।
✗ 2. चेक एक भौतिक मुद्रा है, जबकि नकदी डिजिटल है।
✗ 3. चेक पर ब्याज मिलता है, लेकिन नकदी पर नहीं।
✓ 4. चेक बैंक को दिया गया निर्देश होता है, जबकि नकदी हाथ में मौजूद धन होता है।

Question ID : **441009185420**
Option 1 ID : **441009733003**
Option 2 ID : **441009733000**
Option 3 ID : **441009733002**
Option 4 ID : **441009733001**

Q.11 दिल्ली में कौन-सा स्मारक 200 वर्षों से अधिक समय तक मुगल सम्राटों के निवास के रूप में उपयोग किया जाता रहा?

Ans
✓ 1. लाल किला
✗ 2. हुमायूँ का मकबरा
✗ 3. इंडिया गेट
✗ 4. कुतुब मीनार

Question ID : **441009185405**
Option 1 ID : **441009732941**
Option 2 ID : **441009732940**
Option 3 ID : **441009732942**
Option 4 ID : **441009732943**

Q.12 भारतीय संविधान में 'संविधान संशोधन की प्रक्रिया' की विशेषता _____ से ली गई है।

Ans
✗ 1. जर्मनी
✓ 2. दक्षिण अफ्रीका
✗ 3. संयुक्त राज्य अमेरिका
✗ 4. फ्रांस

Question ID : **441009185452**
Option 1 ID : **441009733129**
Option 2 ID : **441009733131**
Option 3 ID : **441009733130**
Option 4 ID : **441009733128**

QuickSarkari.com | WhatsApp Channel | Telegram: t.me/quick_sarkari

Q.13 चंदका वन्यजीव अभयारण्य किस राज्य में स्थित है?

Ans
✗ 1. महाराष्ट्र
✗ 2. गुजरात
✓ 3. ओडिशा
✗ 4. बिहार

Question ID : **441009185431**
Option 1 ID : **441009733044**
Option 2 ID : **441009733045**
Option 3 ID : **441009733047**
Option 4 ID : **441009733046**

Q.14 'राज्यों के लिए नीति (NITI for States)' मंच के संबंध में निम्नलिखित कथनों पर विचार कीजिए।

1. यह मंच नीति आयोग द्वारा राज्य सरकारों के लिए डेटा-संचालित सूचना प्रदान करने के लिए विकसित किया गया है।
2. यह रियल-टाइम अपडेट के साथ 10 क्षेत्रों और दो क्रॉस-कटिंग थीम को कवर करता है।
3. इन क्षेत्रों में कृषि, शिक्षा, स्वास्थ्य एवं पर्यटन शामिल हैं, तथा लिंग एवं जलवायु परिवर्तन पर भी चर्चा शामिल है।

निम्नलिखित में से कौन-सा/से कथन सही है/हैं?

Ans
✓ 1. 1, 2 और 3
✗ 2. केवल 1 और 2
✗ 3. केवल 2 और 3
✗ 4. केवल 1

Question ID : **441009185394**
Option 1 ID : **441009732899**
Option 2 ID : **441009732897**
Option 3 ID : **441009732898**
Option 4 ID : **441009732896**

Q.15 किस उपन्यास को अंग्रेजी में लिखा गया पहला भारतीय उपन्यास माना जाता है?

Ans
✓ 1. राजमोहन्स वाइफ (Rajmohan's Wife)
✗ 2. अनटचेबल (Untouchable)
✗ 3. कंठपुरा (Kanthapura)
✗ 4. द गाइड (The Guide)

Question ID : **441009185402**
Option 1 ID : **441009732928**
Option 2 ID : **441009732931**
Option 3 ID : **441009732929**
Option 4 ID : **441009732930**

QuickSarkari.com | WhatsApp Channel | Telegram: t.me/quick_sarkari

Q.16 निम्नलिखित में से कौन-सा पृष्ठ, उस पर पड़ने वाले प्रकाश के अधिकांश भाग को परावर्तित करेगा?

Ans
✗ 1. कंक्रीट
✓ 2. दर्पण
✗ 3. लकड़ी
✗ 4. कागज़

Question ID : **441009185416**
Option 1 ID : **441009732986**
Option 2 ID : **441009732985**
Option 3 ID : **441009732987**
Option 4 ID : **441009732984**

Q.17 निम्नलिखित में से कौन-सा, भारत का सबसे नवीनतम (गठन के संदर्भ में) केंद्र शासित प्रदेश है?

Ans
✓ 1. लद्दाख
✗ 2. पुदुचेरी
✗ 3. चंडीगढ़
✗ 4. दमन एवं दीव

Question ID : **441009185446**
Option 1 ID : **441009733104**
Option 2 ID : **441009733107**
Option 3 ID : **441009733105**
Option 4 ID : **441009733106**

Q.18 सितंबर 2024 में, केंद्र सरकार ने निम्नलिखित मे से किसके प्रबंधन के लिए भू-नीर पोर्टल लॉन्च किया?

Ans
✗ 1. वायु गुणवत्ता निगरानी
✓ 2. भूजल निकासी परमिट
✗ 3. जल संरक्षण
✗ 4. वन संसाधन प्रबंधन

Question ID : **441009185390**
Option 1 ID : **441009732880**
Option 2 ID : **441009732882**
Option 3 ID : **441009732881**
Option 4 ID : **441009732883**

Q.19 गांधीजी ने किस वर्ष नमक कानून तोड़ने के लिए एक मार्च का नेतृत्व करने के अपने इरादे की घोषणा की थी?

Ans
✗ 1. 1932
✗ 2. 1933
✗ 3. 1931
✓ 4. 1930

Question ID : **441009185441**
Option 1 ID : **441009733086**
Option 2 ID : **441009733087**
Option 3 ID : **441009733085**
Option 4 ID : **441009733084**

Q.20 एक खाद्य हरित शैवाल जिसे सामान्यतः समुद्री सलाद के रूप में जाना जाता है, निम्नलिखित में से किस शैवाल जीनस से बना है?

Ans ✔ 1. अल्वा (Ulva)

✘ 2. लैमिनैरिया (Laminaria)

✘ 3. कैरा (Chara)

✘ 4. क्लोरेला (Chlorella)

Question ID : **441009185410**
Option 1 ID : **441009732960**
Option 2 ID : **441009732962**
Option 3 ID : **441009732961**
Option 4 ID : **441009732963**

Section : **Arithmetical and Numerical Ability**

Q.1 एक दुकानदार एक पंखे की कीमत उसके क्रय मूल्य से 30% अधिक अंकित करता है और उस अंकित मूल्य पर 20% की छूट देता है। यदि उसे ₹104 का लाभ होता है, तो पंखे का अंकित मूल्य (₹ में) कितना है?

Ans ✘ 1. 3,306

✘ 2. 3,603

✘ 3. 3,434

✔ 4. 3,380

Question ID : **441009184019**
Option 1 ID : **441009727470**
Option 2 ID : **441009727468**
Option 3 ID : **441009727469**
Option 4 ID : **441009727467**

Q.2 तीन संख्याएँ 8 : 15 : 19 के अनुपात में हैं, और उनका LCM, 2280 है। उनका HCF कितना होगा?

Ans ✔ 1. 1

✘ 2. 30

✘ 3. 48

✘ 4. 47

Question ID : **441009184051**
Option 1 ID : **441009727595**
Option 2 ID : **441009727597**
Option 3 ID : **441009727596**
Option 4 ID : **441009727598**

QuickSarkari.com | WhatsApp Channel | Telegram: t.me/quick_sarkari

Q.3 दिव्या ने 5% वार्षिक साधारण ब्याज की दर पर 6 वर्ष के लिए ऋण लिया। यदि भुगतान किया गया कुल ब्याज ₹1,230 था, तो मूलधन (₹ में) कितना था?

Ans
✗ 1. ₹4,150
✓ 2. ₹4,100
✗ 3. ₹4,200
✗ 4. ₹4,250

Question ID : **441009184048**
Option 1 ID : **441009727584**
Option 2 ID : **441009727583**
Option 3 ID : **441009727585**
Option 4 ID : **441009727586**

Q.4 X, Y और Z ने 18 : 3 : 37 के अनुपात में धनराशि निवेश की। यदि वर्ष के अंत में उन्होंने कुल ₹4,060 का लाभ अर्जित किया, तो Y और Z के हिस्से के बीच अंतर कितना है?

Ans
✗ 1. ₹2,434
✓ 2. ₹2,380
✗ 3. ₹2,332
✗ 4. ₹2,359

Question ID : **441009184040**
Option 1 ID : **441009727553**
Option 2 ID : **441009727551**
Option 3 ID : **441009727552**
Option 4 ID : **441009727554**

Q.5 एक व्यक्ति स्थान A से B तक 12 km/hr की चाल से जाता है और उसी मार्ग का उपयोग करते हुए B से A तक 10 km/hr की चाल से वापस लौटता है। पूरी यात्रा के लिए औसत चाल (km/hr में) कितनी है?

Ans
✗ 1. $14\frac{10}{11}$
✗ 2. $12\frac{10}{11}$
✓ 3. $10\frac{10}{11}$
✗ 4. $5\frac{10}{11}$

Question ID : **441009184059**
Option 1 ID : **441009727628**
Option 2 ID : **441009727629**
Option 3 ID : **441009727627**
Option 4 ID : **441009727630**

Q.6 निम्नलिखित में से कौन-सी संख्या 84 से विभाज्य है?

Ans
✗ 1. 590099
✗ 2. 593022
✓ 3. 591948
✗ 4. 591673

Question ID : **441009184030**
Option 1 ID : **441009727512**
Option 2 ID : **441009727513**
Option 3 ID : **441009727511**
Option 4 ID : **441009727514**

Q.7 एक स्कूल में कक्षा X के छात्रों के चार सेक्शन I, II, III और IV हैं।
दी गई तालिका वार्षिक परीक्षा में ग्रेड A, B और C प्राप्त करने वाले छात्रों की संख्या दर्शाती है। तालिका का संदर्भ लें और निम्नलिखित प्रश्न का उत्तर दें।

ग्रेड	छात्रों की संख्या			
	सेक्शन I	सेक्शन II	सेक्शन III	सेक्शन IV
A	21	25	27	15
B	15	10	13	22
C	18	8	12	9

सेक्शन I, II और III से ग्रेड A और C प्राप्त करने वाले छात्रों की संयुक्त संख्या का, सेक्शन I, II, III और IV से ग्रेड B प्राप्त करने वाले छात्रों की संयुक्त संख्या से अनुपात क्या है?

Ans
✓ 1. 37 : 20
✗ 2. 20 : 37
✗ 3. 20 : 17
✗ 4. 17 : 20

Question ID : **441009184060**
Option 1 ID : **441009727633**
Option 2 ID : **441009727631**
Option 3 ID : **441009727634**
Option 4 ID : **441009727632**

Q.8 एक वॉशिंग मशीन की कीमत एक TV की कीमत से 25% कम है। यदि वॉशिंग मशीन की कीमत 74% बढ़ जाती है और TV की कीमत 80% कम हो जाती है, तो 7 वॉशिंग मशीन और 3 TV की कुल कीमत में प्रतिशत परिवर्तन क्या है?

Ans
✗ 1. 15% की कमी
✓ 2. 18% की वृद्धि
✗ 3. 19% की कमी
✗ 4. 17% की वृद्धि

Question ID : **441009184022**
Option 1 ID : **441009727480**
Option 2 ID : **441009727479**
Option 3 ID : **441009727482**
Option 4 ID : **441009727481**

QuickSarkari.com | WhatsApp Channel | Telegram: t.me/quick_sarkari

Q.9 अनिल के पास ₹1,680 हैं। उसने इसे अपने पुत्रों अशोक और राज में बाँट दिया और उन्हें इसे वार्षिक रूप से संयोजित होने वाले 10% वार्षिक ब्याज की दर से निवेश करने को कहा। यह देखा गया कि अशोक और राज को क्रमशः 15 और 16 वर्ष बाद समान धनराशि प्राप्त हुई। अनिल ने अशोक को कितनी धनराशि (₹ में) दी थी?

Ans
✗ 1. 730
✓ 2. 880
✗ 3. 800
✗ 4. 900

Question ID : **441009184026**
Option 1 ID : **441009727497**
Option 2 ID : **441009727495**
Option 3 ID : **441009727496**
Option 4 ID : **441009727498**

Q.10 23 − [4 − {7 − (3 + 5)}] को सरल करें।

Ans
✗ 1. 25
✓ 2. 18
✗ 3. 15
✗ 4. 22

Question ID : **441009184056**
Option 1 ID : **441009727618**
Option 2 ID : **441009727615**
Option 3 ID : **441009727616**
Option 4 ID : **441009727617**

Q.11 A किसी कार्य को 5 घंटे में कर सकता है; B और C मिलकर इसे 4 घंटे में कर सकते हैं, जबकि A और C मिलकर इसे 3 घंटे में कर सकते हैं। B अकेले इस कार्य को पूरा करने में कितना समय लेगा?

Ans
✗ 1. $7\frac{8}{9}$ घंटे
✗ 2. $6\frac{4}{5}$ घंटे
✗ 3. $9\frac{3}{8}$ घंटे
✓ 4. $8\frac{4}{7}$ घंटे

Question ID : **441009184001**
Option 1 ID : **441009727397**
Option 2 ID : **441009727398**
Option 3 ID : **441009727396**
Option 4 ID : **441009727395**

Q.12 शिवा किसी कार्य को 15 दिनों में कर सकता है। शंकर, शिवा से 25% अधिक कार्यकुशल है। शंकर द्वारा उसी कार्य को पूरा करने में लिए गए दिनों की संख्या ज्ञात कीजिए।

Ans
✗ 1. 16 दिन
✗ 2. 14 दिन
✓ 3. 12 दिन
✗ 4. 10 दिन

Question ID : **441009183998**
Option 1 ID : **441009727384**
Option 2 ID : **441009727386**
Option 3 ID : **441009727383**
Option 4 ID : **441009727385**

Q.13 किसी घनाकार बॉक्स की भुजा मापते समय 1% की अतिरिक्त त्रुटि हुई है। बॉक्स के परिकलित आयतन में त्रुटि का प्रतिशत (दशमलव के दो स्थानों तक पूर्णांकित) ज्ञात कीजिए।

Ans
✗ 1. 4.04%
✗ 2. 1.01%
✗ 3. 2.02%
✓ 4. 3.03%

Question ID : **441009184015**
Option 1 ID : **441009727454**
Option 2 ID : **441009727453**
Option 3 ID : **441009727451**
Option 4 ID : **441009727452**

Q.14 निम्नलिखित व्यंजक को सरल कीजिए।

$(a^5 \times b^{-5} \times c^5) \times (a^{-10} \times b^{-6} \times c^6)$

Ans
✗ 1. $a^{-8} \times b^6 \times c^{10}$
✓ 2. $a^{-5} \times b^{-11} \times c^{11}$
✗ 3. $a^{-8} \times b^{-10} \times c^{-5}$
✗ 4. $a^{-10} \times b^1 \times c^5$

Question ID : **441009184032**
Option 1 ID : **441009727521**
Option 2 ID : **441009727519**
Option 3 ID : **441009727522**
Option 4 ID : **441009727520**

QuickSarkari.com | WhatsApp Channel | Telegram: t.me/quick_sarkari

Q.15 यदि $17 \times 2 \times 882 \div \sqrt{2401} = y + 694$ है, तो y का मान ज्ञात कीजिए।

Ans
✗ 1. −78
✓ 2. −82
✗ 3. −79
✗ 4. −84

Question ID : **441009184061**
Option 1 ID : **441009727637**
Option 2 ID : **441009727635**
Option 3 ID : **441009727638**
Option 4 ID : **441009727636**

Q.16 महेश ने एक दुकान से ₹1,125 में 52 किताबें खरीदीं और दूसरी दुकान से ₹9,10 में 47 किताबें खरीदीं। प्रति किताब भुगतान किया गया औसत मूल्य (₹ में, दशमलव के दो स्थानों तक पूर्णांकित) ज्ञात कीजिए।

Ans
✗ 1. ₹22.56
✓ 2. ₹20.56
✗ 3. ₹23.56
✗ 4. ₹21.56

Question ID : **441009184035**
Option 1 ID : **441009727533**
Option 2 ID : **441009727531**
Option 3 ID : **441009727534**
Option 4 ID : **441009727532**

Q.17 कोई दुकानदार अपने क्रय मूल्य पर 12.5% लाभ की अपेक्षा करता है। यदि एक सप्ताह में उसकी वस्तु बिक्री ₹1,01,250 थी, तो उसका लाभ कितना था?

Ans
✗ 1. ₹9,750
✗ 2. ₹9,000
✓ 3. ₹11,250
✗ 4. ₹10,250

Question ID : **441009184009**
Option 1 ID : **441009727430**
Option 2 ID : **441009727428**
Option 3 ID : **441009727429**
Option 4 ID : **441009727427**

Q.18 40 और 90 का माध्यानुपाती ज्ञात कीजिए।

Ans
✗ 1. 62
✗ 2. 61
✓ 3. 60
✗ 4. 58

Question ID : **441009184034**
Option 1 ID : **441009727529**
Option 2 ID : **441009727530**
Option 3 ID : **441009727527**
Option 4 ID : **441009727528**

QuickSarkari.com | WhatsApp Channel | Telegram: t.me/quick_sarkari

Q.19 एक वृत्ताकार पाइप जिसका आंतरिक व्यास 2 cm है, के माध्यम से जल 8 मीटर प्रति सेकंड की दर से, 100 cm आधार त्रिज्या वाले एक बेलनाकार टैंक में प्रवाहित होता है। 15 मिनट में जल का स्तर कितना बढ़ जाएगा?

Ans
✗ 1. 81 cm
✗ 2. 70 cm
✓ 3. 72 cm
✗ 4. 64 cm

Question ID : **441009184064**
Option 1 ID : **441009727649**
Option 2 ID : **441009727650**
Option 3 ID : **441009727647**
Option 4 ID : **441009727648**

Q.20 दो संख्याओं का गुणनफल 6962 है तथा उनका म.स.प. (HCF) 59 है। उनका ल.स.प. (LCM) ज्ञात कीजिए।

Ans
✗ 1. 110
✗ 2. 112
✗ 3. 121
✓ 4. 118

Question ID : **441009184055**
Option 1 ID : **441009727613**
Option 2 ID : **441009727612**
Option 3 ID : **441009727614**
Option 4 ID : **441009727611**

Section : **English Language and Comprehension**

Q.1 Select the most appropriate option to fill in the blank.

They worked _____ to meet the deadline.

Ans
✗ 1. very hardly
✗ 2. hardly
✓ 3. hard
✗ 4. more hard

Question ID : **441009100047**
Option 1 ID : **441009398130**
Option 2 ID : **441009398129**
Option 3 ID : **441009398128**
Option 4 ID : **441009398131**

QuickSarkari.com | WhatsApp Channel | Telegram: t.me/quick_sarkari

Q.2 Select the most appropriate option to fill in the blank.

He is the _____ employee in the company.

Ans
✗ 1. wisest and honest

✗ 2. wiser and honest

✗ 3. most wise and honest

✓ 4. wisest and the most honest

Question ID : **44100999995**
Option 1 ID : **441009397928**
Option 2 ID : **441009397929**
Option 3 ID : **441009397930**
Option 4 ID : **441009397931**

Q.3 Select the most appropriate one-word substitute for the underlined group of words in the given sentence.

She dreaded to visit her late aunt as she was quite a <u>woman who nagged and argued noisily to get what she had desired</u>.

Ans
✗ 1. virtuoso

✗ 2. stoic

✓ 3. termagant

✗ 4. polyglot

Question ID : **441009461150**
Option 1 ID : **4410091803282**
Option 2 ID : **4410091803284**
Option 3 ID : **4410091803281**
Option 4 ID : **4410091803283**

Q.4 Select the most appropriate option to fill in the blank.
She went to ___ supermarket to buy some fruits.

Ans
✗ 1. No article required

✗ 2. a

✗ 3. an

✓ 4. the

Question ID : **441009309886**
Option 1 ID : **4410091206055**
Option 2 ID : **4410091206052**
Option 3 ID : **4410091206053**
Option 4 ID : **4410091206054**

QuickSarkari.com | WhatsApp Channel | Telegram: t.me/quick_sarkari

Q.5 Select the most appropriate option to fill in the blank.

They ran _____ enough to catch the bus.

Ans
✗ 1. fastly

✗ 2. faster

✓ 3. fast

✗ 4. very fastly

Question ID : **441009100054**
Option 1 ID : **441009398156**
Option 2 ID : **441009398158**
Option 3 ID : **441009398157**
Option 4 ID : **441009398159**

Q.6 Parts of a sentence are given below. While the first part is in the correct place, the remaining parts (labelled A, B, C and D) are jumbled up. Arrange the parts in the correct order to form a meaningful and coherent sentence.

The colorful spectrum of
A. musical taste, shaped by cultural milieu and
B. uniquely within the labyrinth of the human psyche
C. personal proclivities, reflects an intricate interplay
D. of rhythm, melody, and emotion that resonates

Ans
✓ 1. ACDB

✗ 2. CBDA

✗ 3. BDCA

✗ 4. CDAB

Question ID : **441009142802**
Option 1 ID : **441009567310**
Option 2 ID : **441009567313**
Option 3 ID : **441009567311**
Option 4 ID : **441009567312**

Q.7 Parts of a sentence are given below. While the first part is in the correct place, the remaining parts (labelled P, Q, R and S) are jumbled up. Arrange the parts in the correct order to form a meaningful and coherent sentence.

Norah Magero designed a refrigerator / to help them keep their milk fresh (P) /asked her to come up with something (Q) / on the way to the market (R) / after some local diary farmers (S)

Ans
✓ 1. SQPR

✗ 2. PQSR

✗ 3. PSRQ

✗ 4. QPSR

Question ID : **441009187711**
Option 1 ID : **441009741218**
Option 2 ID : **441009741217**
Option 3 ID : **441009741216**
Option 4 ID : **441009741215**

QuickSarkari.com | WhatsApp Channel | Telegram: t.me/quick_sarkari

Q.8 Select the correctly spelt word to fill in the blank.
His speech reflected deep _____ on the nature of solitude and survival.

Ans
✔ 1. contemplation
✘ 2. contempletion
✘ 3. conntemplation
✘ 4. contimplation

Question ID : **441009102726**
Option 1 ID : **441009408928**
Option 2 ID : **441009408926**
Option 3 ID : **441009408929**
Option 4 ID : **441009408927**

Q.9 Select the most appropriate option to fill in the blank.
After building a shelter, Crusoe felt more _____ about staying on the island.

Ans
✘ 1. hungry
✘ 2. anxious
✘ 3. distant
✔ 4. comfortable

Question ID : **441009101018**
Option 1 ID : **441009402085**
Option 2 ID : **441009402082**
Option 3 ID : **441009402084**
Option 4 ID : **441009402083**

Q.10 Select the most appropriate synonym of the underlined word in the given sentence.
The manager gave a concise summary of the project.

Ans
✘ 1. Predictable
✘ 2. Elaborate
✘ 3. Backward
✔ 4. Brief

Question ID : **441009100237**
Option 1 ID : **441009398901**
Option 2 ID : **441009398898**
Option 3 ID : **441009398900**
Option 4 ID : **441009398899**

Q.11 Select the most appropriate meaning of the given idiom.
Be skating on thin ice

Ans
✘ 1. To carefully follow rules and avoid trouble
✘ 2. To make steady progress towards success
✔ 3. To do something risky or dangerous
✘ 4. To test new ideas in a safe and controlled way

Question ID : **441009101847**
Option 1 ID : **441009405404**
Option 2 ID : **441009405403**
Option 3 ID : **441009405406**
Option 4 ID : **441009405405**

QuickSarkari.com | WhatsApp Channel | Telegram: t.me/quick_sarkari

Q.12 Select the correctly spelt word to fill in the blank.

The committee approved the _____ for the new project.

Ans
1. budjet
2. budget
3. budjete
4. budgett

Question ID : **441009131140**
Option 1 ID : **441009521165**
Option 2 ID : **441009521164**
Option 3 ID : **441009521163**
Option 4 ID : **441009521166**

Q.13 Select the most appropriate ANTONYM of the given word.

Paramount

Ans
1. Lucid
2. Cryptic
3. Foremost
4. Trivial

Question ID : **441009399691**
Option 1 ID : **4410091564220**
Option 2 ID : **4410091564219**
Option 3 ID : **4410091564218**
Option 4 ID : **4410091564221**

Q.14 Select the most appropriate one-word substitute for the underlined group of words in the given sentence.

His brother is a/an person who blindly believes in his superiority over others and often demeans the women in the family.

Ans
1. dogmatic
2. altruist
3. chauvinist
4. egalitarian

Question ID : **441009461136**
Option 1 ID : **4410091803231**
Option 2 ID : **4410091803232**
Option 3 ID : **4410091803230**
Option 4 ID : **4410091803229**

QuickSarkari.com | WhatsApp Channel | Telegram: t.me/quick_sarkari

Q.15 Select the most appropriate meaning of the given proverb.

Don't count your chickens before they hatch

Ans

✗ 1. Speaking is more powerful than doing

✗ 2. Silence is better than speech

✗ 3. Counting things carefully ensures accuracy

✓ 4. Don't depend on something that hasn't happened yet

Question ID : **44100999260**
Option 1 ID : **441009395032**
Option 2 ID : **441009395029**
Option 3 ID : **441009395030**
Option 4 ID : **441009395031**

Comprehension:

In the following passage, some words have been deleted. Read the passage carefully and select the most appropriate option to fill in each blank.

In a village, there lived a farmer who had a very beautiful daughter. She was ___(1)___ Sonal, for the hair on her head was of pure gold. Sonal's mother took full care ___(2)___ her daughter's priceless hair and would go to great lengths to keep it ___(3)___. Before Sonal would go swimming in the ___(4)___ with her friends, her mother would count her hair. When Sonal would return, her mother would again ___(5)___ the hair.

SubQuestion No : 16

Q.16 Select the most appropriate option to fill in blank number 4.

Ans

✗ 1. rack

✗ 2. lace

✗ 3. lack

✓ 4. lake

Question ID : **441009336105**
Option 1 ID : **4410091310481**
Option 2 ID : **4410091310480**
Option 3 ID : **4410091310478**
Option 4 ID : **4410091310479**

QuickSarkari.com | WhatsApp Channel | Telegram: t.me/quick_sarkari

Comprehension:

In the following passage, some words have been deleted. Read the passage carefully and select the most appropriate option to fill in each blank.

In a village, there lived a farmer who had a very beautiful daughter. She was ___(1)___ Sonal, for the hair on her head was of pure gold. Sonal's mother took full care ___(2)___ her daughter's priceless hair and would go to great lengths to keep it ___(3)___. Before Sonal would go swimming in the ___(4)___ with her friends, her mother would count her hair. When Sonal would return, her mother would again ___(5)___ the hair.

SubQuestion No : 17

Q.17 Select the most appropriate option to fill in blank number 1.

Ans
✔ 1. named
✘ 2. titled
✘ 3. termed
✘ 4. known

Question ID : **441009336102**
Option 1 ID : **4410091310467**
Option 2 ID : **4410091310468**
Option 3 ID : **4410091310466**
Option 4 ID : **4410091310469**

Comprehension:

In the following passage, some words have been deleted. Read the passage carefully and select the most appropriate option to fill in each blank.

In a village, there lived a farmer who had a very beautiful daughter. She was ___(1)___ Sonal, for the hair on her head was of pure gold. Sonal's mother took full care ___(2)___ her daughter's priceless hair and would go to great lengths to keep it ___(3)___. Before Sonal would go swimming in the ___(4)___ with her friends, her mother would count her hair. When Sonal would return, her mother would again ___(5)___ the hair.

SubQuestion No : 18

Q.18 Select the most appropriate option to fill in blank number 3.

Ans
✔ 1. safe
✘ 2. muddy
✘ 3. dirty
✘ 4. lock

Question ID : **441009336104**
Option 1 ID : **4410091310476**
Option 2 ID : **4410091310477**
Option 3 ID : **4410091310474**
Option 4 ID : **4410091310475**

QuickSarkari.com | WhatsApp Channel | Telegram: t.me/quick_sarkari

Comprehension:

In the following passage, some words have been deleted. Read the passage carefully and select the most appropriate option to fill in each blank.

In a village, there lived a farmer who had a very beautiful daughter. She was ___(1)___ Sonal, for the hair on her head was of pure gold. Sonal's mother took full care ___(2)___ her daughter's priceless hair and would go to great lengths to keep it ___(3)___. Before Sonal would go swimming in the ___(4)___ with her friends, her mother would count her hair. When Sonal would return, her mother would again ___(5)___ the hair.

SubQuestion No : 19

Q.19 Select the most appropriate option to fill in blank number 5.

Ans

✔ 1. count

✘ 2. brush

✘ 3. find

✘ 4. care

Question ID : **441009336106**
Option 1 ID : **4410091310485**
Option 2 ID : **4410091310483**
Option 3 ID : **4410091310484**
Option 4 ID : **4410091310482**

Comprehension:

In the following passage, some words have been deleted. Read the passage carefully and select the most appropriate option to fill in each blank.

In a village, there lived a farmer who had a very beautiful daughter. She was ___(1)___ Sonal, for the hair on her head was of pure gold. Sonal's mother took full care ___(2)___ her daughter's priceless hair and would go to great lengths to keep it ___(3)___. Before Sonal would go swimming in the ___(4)___ with her friends, her mother would count her hair. When Sonal would return, her mother would again ___(5)___ the hair.

SubQuestion No : 20

Q.20 Select the most appropriate option to fill in blank number 2.

Ans

✔ 1. of

✘ 2. for

✘ 3. from

✘ 4. with

Question ID : **441009336103**
Option 1 ID : **4410091310470**
Option 2 ID : **4410091310471**
Option 3 ID : **4410091310473**
Option 4 ID : **4410091310472**

Section : **Hindi Language and Comprehension**

QuickSarkari.com | WhatsApp Channel | Telegram: t.me/quick_sarkari

Q.1 निम्नलिखित विकल्पों में से 'उत्कर्ष' का विलोम शब्द कौन-सा है?

Ans
✗ 1. अनुचित
✓ 2. अपकर्ष
✗ 3. दक्षिण
✗ 4. संघर्ष

Question ID : **441009186484**
Option 1 ID : **441009737004**
Option 2 ID : **441009737003**
Option 3 ID : **441009737005**
Option 4 ID : **441009737002**

Q.2 दिए गए वाक्य के किस भाग में त्रुटि है?

इस लिफाफे पर गोपयनीय लिखा है।

Ans
✓ 1. गोपयनीय
✗ 2. लिखा है
✗ 3. इस
✗ 4. लिफाफे पर

Question ID : **441009186500**
Option 1 ID : **441009737068**
Option 2 ID : **441009737069**
Option 3 ID : **441009737066**
Option 4 ID : **441009737067**

Q.3 'टके का सब खेल है' लोकोक्ति का क्या अर्थ है?

Ans
✗ 1. दोनों एक जैसे
✓ 2. पैसा सब कुछ करता है
✗ 3. ठीक मेल है
✗ 4. जैसा दोगे वैसा पाओगे

Question ID : **441009186502**
Option 1 ID : **441009737074**
Option 2 ID : **441009737077**
Option 3 ID : **441009737075**
Option 4 ID : **441009737076**

Q.4 निम्नलिखित वाक्य को सही क्रम में लगाओ।
(1)एक उपन्यास का (2)अनुवाद किया (3)अंग्रेज़ी में (4)मोहन ने

Ans
✗ 1. 1 3 4 2
✗ 2. 4 3 2 1
✗ 3. 1 2 3 4
✓ 4. 4 1 3 2

Question ID : **441009186445**
Option 1 ID : **441009736865**
Option 2 ID : **441009736864**
Option 3 ID : **441009736862**
Option 4 ID : **441009736863**

QuickSarkari.com | WhatsApp Channel | Telegram: t.me/quick_sarkari

Q.5 निम्नलिखित विकल्पों में से शुद्ध वाक्य का चयन करें।}

Ans
✗ 1. वे स्वर्ग सुधारे गए।
✓ 2. वे स्वर्ग सिधार गए।
✗ 3. वे स्वर्ग सुधार गए।
✗ 4. वे स्वर्ग सिधारे गए।

Question ID : **441009186450**
Option 1 ID : **441009736885**
Option 2 ID : **441009736884**
Option 3 ID : **441009736883**
Option 4 ID : **441009736882**

Q.6 निम्नलिखित में से कौन-सा विकल्प तत्सम शब्द है?

Ans
✗ 1. आज
✗ 2. आँसू
✗ 3. आग
✓ 4. आम्र

Question ID : **441009186497**
Option 1 ID : **441009737057**
Option 2 ID : **441009737055**
Option 3 ID : **441009737056**
Option 4 ID : **441009737054**

Q.7 निम्नलिखित में से कौन-सा विकल्प 'ऊर्मि' शब्द का अर्थ है?

Ans
✗ 1. आँख
✓ 2. लहर
✗ 3. कस्तूरी
✗ 4. अमृत

Question ID : **441009186493**
Option 1 ID : **441009737040**
Option 2 ID : **441009737038**
Option 3 ID : **441009737039**
Option 4 ID : **441009737041**

Q.8 निम्नलिखित विकल्पों में से शुद्ध वाक्य का चयन करें

Ans
✓ 1. प्रेम का मूल्य आँका नहीं जा सकता।
✗ 2. प्रेम का मूल्य मापा नहीं जा सकता।
✗ 3. प्रेम का मूल्य आँकी नहीं जा सकता।
✗ 4. प्रेम का मूल्य मापी नहीं जा सकता।

Question ID : **441009186447**
Option 1 ID : **441009736871**
Option 2 ID : **441009736870**
Option 3 ID : **441009736872**
Option 4 ID : **441009736873**

QuickSarkari.com | WhatsApp Channel | Telegram: t.me/quick_sarkari

Q.9 निम्नलिखित विकल्पों में से 'तालाब' का पर्यायवाची कौन-सा है?

Ans
✔ 1. सरोवर
✘ 2. सुर
✘ 3. कृपाण
✘ 4. अमर

Question ID : **441009186487**
Option 1 ID : **441009737014**
Option 2 ID : **441009737015**
Option 3 ID : **441009737017**
Option 4 ID : **441009737016**

Q.10 निम्नलिखित वाक्य को ध्यानपूर्वक पढ़ें और संयुक्त क्रिया शब्द का प्रयोग कर रिक्त स्थान की पूर्ति करें।
मीरा स्कूल____।

Ans
✘ 1. जाएगी
✘ 2. गयी
✔ 3. चली गयी
✘ 4. जाती है

Question ID : **441009186436**
Option 1 ID : **441009736827**
Option 2 ID : **441009736826**
Option 3 ID : **441009736829**
Option 4 ID : **441009736828**

Q.11 निम्नलिखित गद्यांश में अतिरिक्त वाक्य चुनें।
ग़रीबों, ब्राह्मणों की बेटियों को शादी में देकर कुछ पुण्य कमा लेती हूँ। इतनी उम्र होने पर भी उन्होंने कभी लाठी का सहारा नहीं लिया था। अपने लिए तो आस-पास के बच्चों को घेर-बटोर कर पढ़ाती हूँ और उससे अपना ख़र्च चलाती हूँ। मेरे पास बचता ही क्या है जो तुझे या किसी और को दूँगी?

Ans
✘ 1. ग़रीबों, ब्राह्मणों की बेटियों को शादी में देकर कुछ पुण्य कमा लेती हूँ।
✘ 2. मेरे पास बचता ही क्या है जो तुझे या किसी और को दूँगी?
✘ 3. अपने लिए तो आस-पास के बच्चों को घेर-बटोर कर पढ़ाती हूँ और उससे अपना ख़र्च चलाती हूँ।
✔ 4. इतनी उम्र होने पर भी उन्होंने कभी लाठी का सहारा नहीं लिया था।

Question ID : **441009186454**
Option 1 ID : **441009736898**
Option 2 ID : **441009736901**
Option 3 ID : **441009736900**
Option 4 ID : **441009736899**

Q.12 दिए गए वाक्य में रिक्त स्थान के लिए उपयुक्त कारक चुनें।
प्रतिभा ..... विकसित होने से कौन रोक सकता है?

Ans
✗ 1. के
✓ 2. को
✗ 3. अरे
✗ 4. पर

Question ID : **441009186431**
Option 1 ID : **441009736806**
Option 2 ID : **441009736809**
Option 3 ID : **441009736808**
Option 4 ID : **441009736807**

Q.13 सेवानिवृत्ति के पश्चात वह अपना शेष जीवन _____व्यतीत कर रहा है। रिक्त स्थान के लिए सर्वाधिक उपयुक्त क्रियाविशेषण पद है-

Ans
✓ 1. सुखपूर्वक
✗ 2. पर्यंत
✗ 3. लीला
✗ 4. यापन

Question ID : **441009186437**
Option 1 ID : **441009736832**
Option 2 ID : **441009736831**
Option 3 ID : **441009736833**
Option 4 ID : **441009736830**

Q.14 'चार दिन की चाँदनी' मुहावरे का क्या अर्थ है?

Ans
✗ 1. जवाब न देना
✗ 2. उजाला होना
✗ 3. खुशामद करना
✓ 4. थोड़े दिन का सुख

Question ID : **441009186505**
Option 1 ID : **441009737087**
Option 2 ID : **441009737089**
Option 3 ID : **441009737086**
Option 4 ID : **441009737088**

Q.15 दिए गए वाक्यांश के लिए सार्थक शब्द चुनें।
जो सुन न सके

Ans
✗ 1. बाधित
✓ 2. बधिर
✗ 3. अलग
✗ 4. निस्सार

Question ID : **441009186441**
Option 1 ID : **441009736846**
Option 2 ID : **441009736847**
Option 3 ID : **441009736849**
Option 4 ID : **441009736848**

QuickSarkari.com | WhatsApp Channel | Telegram: t.me/quick_sarkari

Comprehension:

निम्नलिखित गद्यांश को पढ़कर दिए गए प्रश्नों के उत्तर दीजिए:

आधुनिक युग में कहने के लिए लड़का-लड़की एक समान हैं किंतु इसके पीछे भी रहस्य कुछ और ही है। यदि यह सच होता तो असंख्य मादा भ्रूणों को गर्भ में नष्ट नहीं किया जाता। इसके परिणाम यह निकल रहे हैं कि लड़का-लड़की के प्रतिशत में काफी अंतर आ रहा है। इसका सीधा प्रभाव प्रकृति के संतुलन पर पड़ता है। पिछली शताब्दी में गुजरात में 'दूधपीती' प्रथा के अंतर्गत नवजात लड़कियों को दूध से भरे पात्र में डुबोकर मार दिया जाता था। परंतु इससे भी अधिक दुख का विषय है कि आजकल तो अधिकांश लड़कियों की जन्म से पहले ही हत्या कर दी जाती है। गर्भपात को कानून की दृष्टि से अपराध नहीं माना जाता। ऐसी विषम स्थिति में लड़का-लड़की को एक समान कहने वाली बात हास्यास्पद लगती है। अधिकांश माता-पिता लड़कियों को बोझ के रूप में देखते हैं। दहेज प्रथा की भयावहता लड़की के जीवन के आकाश में धूमकेतु बनकर छा जाती है।

SubQuestion No : 16

Q.16 दिए गए गद्यांश के लिए उपयुक्त शीर्षक चुनिए-

Ans

✗ 1. आधुनिक

✗ 2. नवजात

✓ 3. नारी की स्थिति

✗ 4. दहेज

Question ID : **441009186477**
Option 1 ID : **441009736977**
Option 2 ID : **441009736974**
Option 3 ID : **441009736975**
Option 4 ID : **441009736976**

Comprehension:

निम्नलिखित गद्यांश को पढ़कर दिए गए प्रश्नों के उत्तर दीजिए:

आधुनिक युग में कहने के लिए लड़का-लड़की एक समान हैं किंतु इसके पीछे भी रहस्य कुछ और ही है। यदि यह सच होता तो असंख्य मादा भ्रूणों को गर्भ में नष्ट नहीं किया जाता। इसके परिणाम यह निकल रहे हैं कि लड़का-लड़की के प्रतिशत में काफी अंतर आ रहा है। इसका सीधा प्रभाव प्रकृति के संतुलन पर पड़ता है। पिछली शताब्दी में गुजरात में 'दूधपीती' प्रथा के अंतर्गत नवजात लड़कियों को दूध से भरे पात्र में डुबोकर मार दिया जाता था। परंतु इससे भी अधिक दुख का विषय है कि आजकल तो अधिकांश लड़कियों की जन्म से पहले ही हत्या कर दी जाती है। गर्भपात को कानून की दृष्टि से अपराध नहीं माना जाता। ऐसी विषम स्थिति में लड़का-लड़की को एक समान कहने वाली बात हास्यास्पद लगती है। अधिकांश माता-पिता लड़कियों को बोझ के रूप में देखते हैं। दहेज प्रथा की भयावहता लड़की के जीवन के आकाश में धूमकेतु बनकर छा जाती है।

SubQuestion No : 17

Q.17 असंख्य मादा भ्रूणों को गर्भ में मारने से क्या होता है?

Ans

✗ 1. सब सही हो जाता है।

✗ 2. प्रकृति साथ नहीं देती।

✗ 3. अधिक दुःख का विषय है।

✓ 4. लड़का-लड़की के प्रतिशत में काफी अंतर आ रहा है।

Question ID : **441009186478**
Option 1 ID : **441009736980**
Option 2 ID : **441009736978**
Option 3 ID : **441009736979**
Option 4 ID : **441009736981**

Comprehension:

निम्नलिखित गद्यांश को पढ़कर दिए गए प्रश्नों के उत्तर दीजिए:

आधुनिक युग में कहने के लिए लड़का-लड़की एक समान हैं किंतु इसके पीछे भी रहस्य कुछ और ही है। यदि यह सच होता तो असंख्य मादा भ्रूणों को गर्भ में नष्ट नहीं किया जाता। इसके परिणाम यह निकल रहे हैं कि लड़का-लड़की के प्रतिशत में काफी अंतर आ रहा है। इसका सीधा प्रभाव प्रकृति के संतुलन पर पड़ता है। पिछली शताब्दी में गुजरात में 'दूधपीती' प्रथा के अंतर्गत नवजात लड़कियों को दूध से भरे पात्र में डुबोकर मार दिया जाता था। परंतु इससे भी अधिक दुख का विषय है कि आजकल तो अधिकांश लड़कियों की जन्म से पहले ही हत्या कर दी जाती है। गर्भपात को कानून की दृष्टि से अपराध नहीं माना जाता। ऐसी विषम स्थिति में लड़का-लड़की को एक समान कहने वाली बात हास्यास्पद लगती है। अधिकांश माता-पिता लड़कियों को बोझ के रूप में देखते हैं। दहेज प्रथा की भयावहता लड़की के जीवन के आकाश में धूमकेतु बनकर छा जाती है।

SubQuestion No : 18

Q.18 वर्तमान समय में लड़कियों की क्या दशा है?

Ans

✗ 1. हमारा समाज लड़कियों को समान मानने लगा है।

✓ 2. अधिकांश माता-पिता लड़कियों को बोझ रूप में ही देखते हैं जिसके पीछे कई कारण हैं।

✗ 3. लड़का के प्रतिशत में कोई अंतर नहीं है।

✗ 4. मादा भ्रूणों का गर्भपात करना आसान है।

Question ID : **441009186479**
Option 1 ID : **441009736984**
Option 2 ID : **441009736985**
Option 3 ID : **441009736982**
Option 4 ID : **441009736983**

Comprehension:

निम्नलिखित गद्यांश को पढ़कर दिए गए प्रश्नों के उत्तर दीजिए:

आधुनिक युग में कहने के लिए लड़का-लड़की एक समान हैं किंतु इसके पीछे भी रहस्य कुछ और ही है। यदि यह सच होता तो असंख्य मादा भ्रूणों को गर्भ में नष्ट नहीं किया जाता। इसके परिणाम यह निकल रहे हैं कि लड़का-लड़की के प्रतिशत में काफी अंतर आ रहा है। इसका सीधा प्रभाव प्रकृति के संतुलन पर पड़ता है। पिछली शताब्दी में गुजरात में 'दूधपीती' प्रथा के अंतर्गत नवजात लड़कियों को दूध से भरे पात्र में डुबोकर मार दिया जाता था। परंतु इससे भी अधिक दुख का विषय है कि आजकल तो अधिकांश लड़कियों की जन्म से पहले ही हत्या कर दी जाती है। गर्भपात को कानून की दृष्टि से अपराध नहीं माना जाता। ऐसी विषम स्थिति में लड़का-लड़की को एक समान कहने वाली बात हास्यास्पद लगती है। अधिकांश माता-पिता लड़कियों को बोझ के रूप में देखते हैं। दहेज प्रथा की भयावहता लड़की के जीवन के आकाश में धूमकेतु बनकर छा जाती है।

SubQuestion No : 19

Q.19 लड़की के जीवन के आकाश में धूमकेतु बनकर क्या छा जाती है?

Ans

✗ 1. दूध से भरे पात्र

✓ 2. दहेज प्रथा की भयावहता

✗ 3. कुछ रहस्य

✗ 4. कानून की दृष्टि

Question ID : **441009186480**
Option 1 ID : **441009736986**
Option 2 ID : **441009736987**
Option 3 ID : **441009736989**
Option 4 ID : **441009736988**

Comprehension:

निम्नलिखित गद्यांश को पढ़कर दिए गए प्रश्नों के उत्तर दीजिए:

आधुनिक युग में कहने के लिए लड़का-लड़की एक समान हैं किंतु इसके पीछे भी रहस्य कुछ और ही है। यदि यह सच होता तो असंख्य मादा भ्रूणों को गर्भ में नष्ट नहीं किया जाता। इसके परिणाम यह निकल रहे हैं कि लड़का-लड़की के प्रतिशत में काफी अंतर आ रहा है। इसका सीधा प्रभाव प्रकृति के संतुलन पर पड़ता है। पिछली शताब्दी में गुजरात में 'दूधपीती' प्रथा के अंतर्गत नवजात लड़कियों को दूध से भरे पात्र में डुबोकर मार दिया जाता था। परंतु इससे भी अधिक दुख का विषय है कि आजकल तो अधिकांश लड़कियों की जन्म से पहले ही हत्या कर दी जाती है। गर्भपात को कानून की दृष्टि से अपराध नहीं माना जाता। ऐसी विषम स्थिति में लड़का-लड़की को एक समान कहने वाली बात हास्यास्पद लगती है। अधिकांश माता-पिता लड़कियों को बोझ के रूप में देखते हैं। दहेज प्रथा की भयावहता लड़की के जीवन के आकाश में धूमकेतु बनकर छा जाती है।

SubQuestion No : 20

Q.20 'शिक्षित' का विलोम है -

Ans
✔ 1. अशिक्षित
✘ 2. शिक्षक
✘ 3. अनपढ़
✘ 4. शिक्षा

Question ID : **441009186481**
Option 1 ID : **441009736992**
Option 2 ID : **441009736993**
Option 3 ID : **441009736991**
Option 4 ID : **441009736990**

Section : **Discipline1**

Q.1 भारत में अंतिम राष्ट्रीय जनगणना कब हुई थी?

Ans
✘ 1. 2021
✔ 2. 2011
✘ 3. 2015
✘ 4. 2001

Question ID : **441009675053**
Option 1 ID : **4410092654388**
Option 2 ID : **4410092654386**
Option 3 ID : **4410092654387**
Option 4 ID : **4410092654385**

Q.2 निम्नलिखित में से कौन-सा समूह, अनुचित जैव-चिकित्सा अपशिष्ट प्रबंधन के कारण सबसे अधिक व्यावसायिक जोखिम में है?

Ans
✘ 1. शिक्षक
✘ 2. पायलट
✘ 3. इंजीनियर
✔ 4. सफाई कर्मचारी

Question ID : **441009647637**
Option 1 ID : **4410092544595**
Option 2 ID : **4410092544597**
Option 3 ID : **4410092544594**
Option 4 ID : **4410092544596**

QuickSarkari.com | WhatsApp Channel | Telegram: t.me/quick_sarkari

Q.3 किसी निश्चित समय पर किसी आबादी (population) में उपस्थित किसी रोग या स्थिति के कुल मामलों (नए और मौजूदा दोनों) की संख्या को _____ कहा जाता है।

Ans
✔ 1. व्यापकता
✘ 2. मृत्युदर
✘ 3. आघटन
✘ 4. जन्मदर

Question ID : **441009674946**
Option 1 ID : **4410092653962**
Option 2 ID : **4410092653964**
Option 3 ID : **4410092653963**
Option 4 ID : **4410092653965**

Q.4 निम्नलिखित में से कौन-सी वस्तुएँ, जैव-चिकित्सा अपशिष्ट के रूप में वर्गीकृत की जा सकती हैं?

Ans
✘ 1. अस्पताल प्रशासन से कार्यालय के कागजात और पुराने रोगियों की फाइलें
✔ 2. प्रयुक्त सिरिंज, त्यक्त मानव ऊतक और सूक्ष्मजैविक संवर्धन
✘ 3. रोगी के भोजन से निकलने वाला खाद्य अपशिष्ट और अस्पताल के कैफेटेरिया से निकलने वाला खाद्य अपशिष्ट
✘ 4. अस्पतालों में प्रयुक्त टूटे हुए फर्नीचर और गैर-चिकित्सा उपकरण

Question ID : **441009640930**
Option 1 ID : **4410092517865**
Option 2 ID : **4410092517863**
Option 3 ID : **4410092517864**
Option 4 ID : **4410092517866**

Q.5 निम्नलिखित में से कौन-सा परीक्षण, चाल और सटीकता के साथ कुल, मुक्त और संयुक्त क्लोरीन को माप सकता है?

Ans
✘ 1. शिक परीक्षण (Shick test)
✔ 2. ऑर्थोटोलिडाइन परीक्षण (Orthotolidine test)
✘ 3. केवीम परीक्षण (Kveim test)
✘ 4. बेनेडिक्ट परीक्षण (Benedict test)

Question ID : **441009677564**
Option 1 ID : **4410092664450**
Option 2 ID : **4410092664452**
Option 3 ID : **4410092664451**
Option 4 ID : **4410092664449**

Q.6 भारत के जैव-चिकित्सा अपशिष्ट (प्रबंधन और हैंडलिंग) नियमावली, 1998 के अनुसार, स्वास्थ्य देखभाल अपशिष्ट का कितना प्रतिशत संकटकारी माना जाता है, जो स्वास्थ्य के लिए खतरा उत्पन्न करता है?

Ans
✔ 1. 10-25%
✘ 2. 5% से कम
✘ 3. 50-60%
✘ 4. 30-75%

Question ID : **441009665229**
Option 1 ID : **4410092614952**
Option 2 ID : **4410092614954**
Option 3 ID : **4410092614951**
Option 4 ID : **4410092614953**

Q.7 आधुनिक वाहितमल उपचार प्रणाली में निम्नलिखित में से कौन-सी संरचना सक्रियित आपंक प्रक्रम के केंद्र के रूप में जानी जाती है?

Ans
✗ 1. ग्रिट चैंबर (Grit chamber)
✓ 2. वातन टैंक (Aeration tank)
✗ 3. हॉरॉक उपकरण (Horrock's apparatus)
✗ 4. ट्रिकलिंग फ़िल्टर (Trickling filter)

Question ID : **441009640980**
Option 1 ID : **4410092518064**
Option 2 ID : **4410092518063**
Option 3 ID : **4410092518066**
Option 4 ID : **4410092518065**

Q.8 सैनिटरी लैंडफिल में कार्बनिक अपशिष्ट के अवायवीय अपघटन के कारण निम्नलिखित में से कौन-सी गैस सामान्यतः उत्पादित होती है?

Ans
✗ 1. ऑक्सीजन
✓ 2. मेथेन
✗ 3. कार्बन डाइऑक्साइड
✗ 4. नाइट्रोजन

Question ID : **441009677369**
Option 1 ID : **4410092663654**
Option 2 ID : **4410092663653**
Option 3 ID : **4410092663656**
Option 4 ID : **4410092663655**

Q.9 निम्नलिखित में से किस श्रेणी के अपशिष्ट में रसायन, रासायनिक आपंक और अवशिष्ट रसायन होते हैं, जो BMW नियमावली, 2016 के अनुसार अब उपयोग योग्य नहीं हैं?

Ans
✗ 1. काली श्रेणी
✓ 2. पीली श्रेणी
✗ 3. नीली श्रेणी
✗ 4. लाल श्रेणी

Question ID : **441009641019**
Option 1 ID : **4410092518218**
Option 2 ID : **4410092518217**
Option 3 ID : **4410092518216**
Option 4 ID : **4410092518215**

Q.10 जनसांख्यिकी चक्र के निम्नलिखित में से किस चरण की विशेषता, उच्च जन्म और मृत्यु दर है, जिसके परिणामस्वरूप स्थिर या धीमी गति से जनसंख्या वृद्धि होती है?

Ans
✗ 1. विलंबित प्रसार चरण 3 (Late Expanding Stage 3)
✓ 2. उच्च स्थिर चरण 1 (High Stationary Stage 1)
✗ 3. प्रारंभिक विस्तार चरण 2 (Early Expanding Stage 2)
✗ 4. निम्न स्थिर चरण 4 (Low Stationary Stage 4)

Question ID : **441009675073**
Option 1 ID : **4410092654475**
Option 2 ID : **4410092654473**
Option 3 ID : **4410092654474**
Option 4 ID : **4410092654476**

QuickSarkari.com | WhatsApp Channel | Telegram: t.me/quick_sarkari

Q.11 द्रव जैव-चिकित्सा अपशिष्ट जैसे रक्त, मूत्र, मल या अस्पताल के वाहितमल के उपचार के लिए निम्नलिखित में से कौन-सी विधि सबसे उपयुक्त है?

Ans
✔ 1. रासायनिक विसंक्रमण (Chemical disinfection)
✘ 2. भस्मीकरण (Incineration)
✘ 3. कर्तन (Shredding)
✘ 4. ऑटोक्लेवन (Autoclaving)

Question ID : **441009665625**
Option 1 ID : **4410092616529**
Option 2 ID : **4410092616527**
Option 3 ID : **4410092616530**
Option 4 ID : **4410092616528**

Q.12 निम्नलिखित में से कौन-सा प्रत्यक्ष अस्वस्थता सूचक है?

Ans
✘ 1. रोगी मृत्यु दर (Case fatality rate)
✘ 2. मृत्यु दर (Death rate)
✔ 3. आघटन दर (Incidence rate)
✘ 4. जीवन प्रत्याशा (Life expectancy)

Question ID : **441009640847**
Option 1 ID : **4410092517534**
Option 2 ID : **4410092517532**
Option 3 ID : **4410092517531**
Option 4 ID : **4410092517533**

Q.13 ग्रामीण भारत में आपदा की स्थिति में शवों के सामूहिक निपटान के लिए पारंपरिक रूप से निम्नलिखित में से किस विधि का उपयोग किया जाता है?

Ans
✘ 1. रासायनिक विसंक्रमण (Chemical disinfection)
✘ 2. खुल में डंप करना (Open dumping)
✔ 3. गहराई में दफन करना (Deep burial)
✘ 4. पुनर्चक्रण (Recycling)

Question ID : **441009647347**
Option 1 ID : **4410092543443**
Option 2 ID : **4410092543444**
Option 3 ID : **4410092543442**
Option 4 ID : **4410092543445**

Q.14 संक्रामक, रासायनिक और भैषजिक अपशिष्ट के निपटान के लिए निम्नलिखित में से कौन-सी विधि सबसे प्रभावी है?

Ans
✔ 1. घूर्णी भट्टा भस्मीकरण
✘ 2. जमीन में गहराई में गाड़ना
✘ 3. रासायनिक विसंक्रमण
✘ 4. खुले में डालना

Question ID : **441009665842**
Option 1 ID : **4410092617351**
Option 2 ID : **4410092617353**
Option 3 ID : **4410092617354**
Option 4 ID : **4410092617352**

Q.15 जनसांख्यिकी चक्र के निम्नलिखित में से किस अवस्था को निम्न स्थिर अवस्था (Low Stationary stage) के रूप में भी जाना जाता है?

Ans
✗ 1. अवस्था 3
✗ 2. अवस्था 2
✓ 3. अवस्था 4
✗ 4. अवस्था 1

Question ID : **441009675065**
Option 1 ID : **4410092654443**
Option 2 ID : **4410092654442**
Option 3 ID : **4410092654444**
Option 4 ID : **4410092654441**

Q.16 निम्नलिखित में से कौन-सा कीटनाशक, प्रायः क्राइसेन्थिमम सिनेरेरियाएफोलियम (Chrysanthemum cinerariaefolium) के पुष्पोंसे तैयार किया जाता है?

Ans
✗ 1. प्रोपोक्सुर (Propoxur)
✓ 2. पाइरेथ्रम (Pyrethrum)
✗ 3. मैलैथियान (Malathion)
✗ 4. पेरिस ग्रीन (Paris green)

Question ID : **441009677511**
Option 1 ID : **4410092664238**
Option 2 ID : **4410092664237**
Option 3 ID : **4410092664240**
Option 4 ID : **4410092664239**

Q.17 निम्नलिखित में से अपशिष्ट की किस श्रेणी को 'शार्प्स (sharps)' बायोमेडिकल अपशिष्ट माना जाता है?

Ans
✗ 1. अवशिष्ट तरल के साथ IV बैग
✓ 2. टूटी हुई कांच की शीशियाँ
✗ 3. उपयोग की गई पट्टियाँ
✗ 4. एक्सपायर हो चुकी दवाइयाँ

Question ID : **441009677259**
Option 1 ID : **4410092663220**
Option 2 ID : **4410092663218**
Option 3 ID : **4410092663219**
Option 4 ID : **4410092663217**

Q.18 आकस्मिक या प्रासंगिक कारणों को छोड़कर, गर्भावस्था या उसके प्रबंधन से संबंधित या उसके कारण उत्पन्न किसी भी कारण से प्रति 1,00,000 जीवित जन्मों पर महिला मृत्यु की वार्षिक संख्या को _____ के रूप में जाना जाता है।

Ans
✗ 1. नवजात मृत्यु दर अनुपात
✗ 2. शिशु मृत्यु दर अनुपात
✓ 3. मातृ मृत्यु दर अनुपात
✗ 4. प्रसवकालीन मृत्यु दर अनुपात

Question ID : **441009675086**
Option 1 ID : **4410092654525**
Option 2 ID : **4410092654528**
Option 3 ID : **4410092654527**
Option 4 ID : **4410092654526**

QuickSarkari.com | WhatsApp Channel | Telegram: t.me/quick_sarkari

Q.19 DDT, कीटनाशकों के किस वर्ग से संबंधित है?

Ans
✗ 1. यूरेट्स (Urates)
✗ 2. कार्बामेट (Carbamates)
✗ 3. ऑर्गेनोफॉस्फोरस यौगिक (Organophosphorus compounds)
✓ 4. ऑर्गेनोक्लोरीन यौगिक (Organochlorine compounds)

Question ID : **441009677502**
Option 1 ID : **4410092664204**
Option 2 ID : **4410092664203**
Option 3 ID : **4410092664202**
Option 4 ID : **4410092664201**

Q.20 निम्नलिखित में से किसे जैव-चिकित्सा अपशिष्ट का स्रोत माना जाता है?

Ans
✗ 1. कागज मिल
✓ 2. अस्पताल प्रयोगशाला
✗ 3. वस्त्र कारखाना
✗ 4. खाद्य उद्योग

Question ID : **441009647244**
Option 1 ID : **4410092543025**
Option 2 ID : **4410092543023**
Option 3 ID : **4410092543024**
Option 4 ID : **4410092543022**

Section : **Discipline2**

Q.1 निम्नलिखित में से कौन-सा गैर-संचारी रोग जोखिम कारक निगरानी के लिए WHO STEPS उपागम के घटकों का सही अनुक्रम है?

Ans
✗ 1. प्रश्नावली → जैव रासायनिक माप → भौतिक माप
✗ 2. भौतिक माप → प्रश्नावली → जैव रासायनिक माप
✓ 3. प्रश्नावली → भौतिक माप → जैव रासायनिक माप
✗ 4. जैव रासायनिक माप → प्रश्नावली → भौतिक माप

Question ID : **441009665920**
Option 1 ID : **4410092617660**
Option 2 ID : **4410092617662**
Option 3 ID : **4410092617659**
Option 4 ID : **4410092617661**

Q.2 निम्नलिखित में से किस गैस को ग्लोबल वार्मिंग के लिए उत्तरदायी प्राथमिक ग्रीनहाउस गैस नहीं माना जाता है?

Ans
✗ 1. N_2O
✓ 2. O_2
✗ 3. CO_2
✗ 4. CH_4

Question ID : **441009677481**
Option 1 ID : **4410092664112**
Option 2 ID : **4410092664111**
Option 3 ID : **4410092664109**
Option 4 ID : **4410092664110**

Q.3 निम्नलिखित में से कौन-सा हेपेटाइटिस, मुख्य रूप से दूषित जल के माध्यम से मल-मुख मार्ग (faecal-oral route) से संचारित होता है?

Ans
✓ 1. हेपेटाइटिस E
✗ 2. हेपेटाइटिस B
✗ 3. हेपेटाइटिस D
✗ 4. हेपेटाइटिस C

Question ID : **441009641125**
Option 1 ID : **4410092518642**
Option 2 ID : **4410092518639**
Option 3 ID : **4410092518641**
Option 4 ID : **4410092518640**

Q.4 कौन-सा जल परीक्षण मापयंत्र जल विसंक्रमण के लिए आवश्यक ब्लीचिंग पाउडर की मात्रा ज्ञात करने के लिए डिज़ाइन किया गया है?

Ans
✗ 1. इसराइट उपकरण (Esrite's apparatus)
✗ 2. विंट्रोब उपकरण (Wintrobe's apparatus)
✗ 3. वेस्टरग्रेन उपकरण (Westergren's apparatus)
✓ 4. हॉरॉक उपकरण (Horrock's Apparatus)

Question ID : **441009641141**
Option 1 ID : **4410092518704**
Option 2 ID : **4410092518706**
Option 3 ID : **4410092518705**
Option 4 ID : **4410092518703**

Q.5 समस्त पेय जल के लिए ई. कोलाई या तापसह कॉलीफार्म जीवाणु का दिशानिर्देश मान क्या है?

Ans
✗ 1. निदर्श के किसी भी 700 ml में संसूचनीय न होना
✓ 2. निदर्श के किसी भी 100 ml में संसूचनीय न होना
✗ 3. निदर्श के किसी भी 500 ml में संसूचनीय न होना
✗ 4. निदर्श के किसी भी 900 ml में संसूचनीय न होना

Question ID : **441009643417**
Option 1 ID : **4410092527856**
Option 2 ID : **4410092527854**
Option 3 ID : **4410092527855**
Option 4 ID : **4410092527857**

QuickSarkari.com | WhatsApp Channel | Telegram: t.me/quick_sarkari

Q.6 NFHS-3 (2005-06) के अनुसार, निम्नलिखित में से कौन-सा कारक शिशु मृत्यु दर के बढ़ते जोखिम से संबंधित है?

Ans
✗ 1. अच्छा संवातन
✗ 2. केवल स्तनपान
✗ 3. पाइप से पानी की उपलब्धता
✓ 4. खराब जल निकासी और कीट प्रजनन

Question ID : **441009647768**
Option 1 ID : **4410092545131**
Option 2 ID : **4410092545133**
Option 3 ID : **4410092545130**
Option 4 ID : **4410092545132**

Q.7 यॉज़ (yaws) और फाइलेरिया जैसे रोगों के नियंत्रण में सामूहिक उपचार का प्राथमिक उद्देश्य क्या है?

Ans
✓ 1. रोग को फैलने से रोकने के लिए पूरे समुदाय का उपचार करें
✗ 2. केवल बच्चों का टीकाकरण करें
✗ 3. केवल उन्हीं रोगियों का उपचार करें, जिनमें लक्षण दिखाई दे रहे हों
✗ 4. रोग फैलाने वाले जानवरों के उपचार पर ध्यान दें

Question ID : **441009648410**
Option 1 ID : **4410092547792**
Option 2 ID : **4410092547793**
Option 3 ID : **4410092547791**
Option 4 ID : **4410092547794**

Q.8 निम्नलिखित में से कौन-सा रोग बिंदुक केंद्रक (droplet nuclei) द्वारा नहीं फैलता है?

Ans
✓ 1. लीशमैनियता (leishmaniasis)
✗ 2. यक्ष्मा (tuberculosis)
✗ 3. छोटी माता (chickenpox)
✗ 4. इंफ्लुएन्जा (influenza)

Question ID : **441009640281**
Option 1 ID : **4410092515282**
Option 2 ID : **4410092515280**
Option 3 ID : **4410092515283**
Option 4 ID : **4410092515281**

Q.9 निम्नलिखित में से कौन-सा ऑक्सीकारक, विसंक्रमण के लिए उपयोग नहीं किया जाता है?

Ans
✓ 1. हेक्साक्लोरोफीन (Hexachlorophene)
✗ 2. पोटैशियम परमैंगनेट (potassium permanganate)
✗ 3. परऐसीटिक अम्ल (Peracetic acid)
✗ 4. हाइड्रोजन परॉक्साइड (hydrogen peroxide)

Question ID : **441009640262**
Option 1 ID : **4410092515199**
Option 2 ID : **4410092515196**
Option 3 ID : **4410092515198**
Option 4 ID : **4410092515197**

QuickSarkari.com | WhatsApp Channel | Telegram: t.me/quick_sarkari

Q.10 निम्नलिखित में से कौन-सा रोग, कॉक्सिएला बर्नेटी (Coxiella burnetii) के कारण होता है?

Ans
✗ 1. पीत ज्वर (Yellow fever)
✓ 2. Q ज्वर (Q fever)
✗ 3. स्क्रब टाइफस (Scrub typhus)
✗ 4. मूषक टाइफस (Murine typhus)

Question ID : **441009674791**
Option 1 ID : **4410092653315**
Option 2 ID : **4410092653314**
Option 3 ID : **4410092653316**
Option 4 ID : **4410092653317**

Q.11 भारतीय कारखाना अधिनियम के अनुसार, एक फैक्ट्री कक्ष में प्रति श्रमिक के लिए न्यूनतम कितनी वायु जगह (air space) आवश्यक है?

Ans
✗ 1. 1000 cu. ft
✓ 2. 500 cu. ft
✗ 3. 200 cu. ft
✗ 4. 300 cu. ft

Question ID : **441009647704**
Option 1 ID : **4410092544873**
Option 2 ID : **4410092544872**
Option 3 ID : **4410092544870**
Option 4 ID : **4410092544871**

Q.12 सेबिन वैक्सीन (Sabin vaccine) के संबंध में निम्नलिखित में से कौन-सा सत्य नहीं है?

Ans
✓ 1. इसे IM या अधःत्वक् रूप से दिया जाता है
✗ 2. इसका उपयोग महामारी को नियंत्रित करने में प्रभावी रूप से किया जा सकता है
✗ 3. यह एक जीवित तनूकृत वैक्सीन है
✗ 4. यह देहतरल और आंत्रीय दोनों प्रतिरक्षा प्रदान करता है

Question ID : **441009640399**
Option 1 ID : **4410092515753**
Option 2 ID : **4410092515754**
Option 3 ID : **4410092515752**
Option 4 ID : **4410092515755**

Q.13 निम्नलिखित में से कौन-सा कॉपर एसिटोआर्सेनाइट सूक्ष्मक्रिस्टलीय पाउडर लार्वानाशी के रूप में उपयोग किया जाता है?

Ans
✓ 1. पेरिस ग्रीन (Paris green)
✗ 2. क्लोरपाइरीफोस (Chlorpyrifos)
✗ 3. अबेट (Abate)
✗ 4. फेन्थियान (Fenthion)

Question ID : **441009641114**
Option 1 ID : **4410092518595**
Option 2 ID : **4410092518598**
Option 3 ID : **4410092518596**
Option 4 ID : **4410092518597**

QuickSarkari.com | WhatsApp Channel | Telegram: t.me/quick_sarkari

Q.14 आइसबर्ग (iceberg) का निम्नलिखित में से कौन-सा भाग, समुदाय में अव्यक्त, अप्रकट, लक्षणपूर्व और निदानहीन मामलों और वाहकों जैसे रोगों के छिपे हुए समूह का प्रतिनिधित्व करता है?

Ans
✔ 1. आइसबर्ग का विशाल जलमग्न भाग
✘ 2. आइसबर्ग की जलरेखा
✘ 3. आइसबर्ग का प्लावी अग्र
✘ 4. पूर्ण आइसबर्ग

Question ID : **441009640298**
Option 1 ID : **4410092515349**
Option 2 ID : **4410092515350**
Option 3 ID : **4410092515348**
Option 4 ID : **4410092515351**

Q.15 ड्रैकन्कुलस रूग्णता (dracunculiasis) के संचरण को नियंत्रित करने और रोकने के लिए निम्नलिखित में से किस उपाय का उपयोग किया जाता है?

Ans
✘ 1. श्वसन अलगाव (Respiratory isolation) और सावधानियां
✔ 2. सुरक्षित पेयजल का प्रबंध
✘ 3. ड्रॉपलेट और फोमाइट (Droplet and fomite) संबंधी सावधानियां
✘ 4. मच्छरों के प्रजनन स्थानों का उन्मूलन

Question ID : **441009640420**
Option 1 ID : **4410092515838**
Option 2 ID : **4410092515837**
Option 3 ID : **4410092515839**
Option 4 ID : **4410092515836**

Q.16 निम्नलिखित में से कौन-सा कथन, प्रत्येक घर में हाथ धोने की सुविधा के महत्व को सर्वोत्तम तरीके से वर्णित करता है?

Ans
✘ 1. इससे सामुदायिक शौचालयों की आवश्यकता कम हो जाती है।
✘ 2. इससे सफाई के दौरान साबुन की आवश्यकता समाप्त हो जाती है।
✘ 3. इससे ग्रामीण क्षेत्रों में जल की खपत बढ़ जाती है।
✔ 4. यह रोगों को फैलने से रोकता है और आर्तवकालीन स्वस्थवृत्त को बढ़ावा देता है।

Question ID : **441009647773**
Option 1 ID : **4410092545150**
Option 2 ID : **4410092545152**
Option 3 ID : **4410092545153**
Option 4 ID : **4410092545151**

Q.17 निम्नलिखित में से किस एक को छोड़कर शेष सभी खाद्य जनित संक्रमण हैं?

Ans
✘ 1. साल्मोनेलता (salmonellosis)
✘ 2. लिस्टेरीमयता (listeriosis)
✘ 3. शिगेलारूग्णता (shigellosis)
✔ 4. लीशमैनियता (leishmaniasis)

Question ID : **441009677537**
Option 1 ID : **4410092664342**
Option 2 ID : **4410092664341**
Option 3 ID : **4410092664343**
Option 4 ID : **4410092664344**

Q.18 निम्नलिखित में से किस कृंतकनाशी (rodenticide) को WHO की विशेषज्ञ समिति द्वारा उपयोग के लिए अत्यधिक खतरनाक माना गया है?

Ans
✗ 1. नॉरबोर्माइड (Norbormide)
✗ 2. रेड स्क्विल (Red squill)
✓ 3. आर्सेनिक ट्राइऑक्साइड (Arsenic trioxide)
✗ 4. जिंक फ़ॉस्फाइड (Zinc phosphide)

Question ID : **441009641119**
Option 1 ID : **4410092518617**
Option 2 ID : **4410092518616**
Option 3 ID : **4410092518615**
Option 4 ID : **4410092518618**

Q.19 पल्स पोलियो प्रतिरक्षीकरण (Pulse Polio Immunisation) में 'पल्स' शब्द का क्या आशय है?

Ans
✗ 1. टीकाकरण केवल वयस्कों को दिया जाता है
✗ 2. पूरे वर्ष लगातार टीकाकरण किया जाता है
✓ 3. अचानक एक ही दिन में OPV का एक साथ सामूहिक अवचारण
✗ 4. पल्स इंजेक्शन के माध्यम से टीकाकरण

Question ID : **441009648386**
Option 1 ID : **4410092547686**
Option 2 ID : **4410092547684**
Option 3 ID : **4410092547685**
Option 4 ID : **4410092547687**

Q.20 आवास मानकों के अनुसार, आदर्श दिवालोक गुणांक (daylight factor)_____ होना चाहिए।

Ans
✓ 1. आधे फर्श क्षेत्रफल पर 1% से अधिक
✗ 2. आधे फर्श क्षेत्रफल पर 0.2% से अधिक
✗ 3. आधे फर्श क्षेत्रफल पर 0.1% से अधिक
✗ 4. आधे फर्श क्षेत्रफल पर 0.4% से अधिक

Question ID : **441009677551**
Option 1 ID : **4410092664397**
Option 2 ID : **4410092664399**
Option 3 ID : **4410092664400**
Option 4 ID : **4410092664398**

Section : **Discipline3**

QuickSarkari.com | WhatsApp Channel | Telegram: t.me/quick_sarkari

Q.1 प्राथमिक स्वास्थ्य देखभाल के संदर्भ में, स्वास्थ्य शिक्षा प्रयास के प्रमुख लक्ष्य कौन-से हैं?

Ans
✗ 1. डॉक्टर और नर्स
✗ 2. भैषजिक (Pharmaceutical) कंपनियां
✓ 3. आम जनता, रोगी, सामुदायिक नेता और स्वास्थ्य प्रदाता
✗ 4. सरकारी अधिकारी

Question ID : **441009648431**
Option 1 ID : **4410092547877**
Option 2 ID : **4410092547880**
Option 3 ID : **4410092547879**
Option 4 ID : **4410092547878**

Q.2 सिगमंड फ्रायड के अनुसार शिशु की मनोलैंगिक अवस्था क्या है?

Ans
✗ 1. कामप्रसुप्ति अवस्था (Latency stage)
✗ 2. गुदावस्था (Anal stage)
✓ 3. मौखिक अवस्था (Oral stage)
✗ 4. शिश्न अवस्था (Phallic stage)

Question ID : **441009643620**
Option 1 ID : **4410092528677**
Option 2 ID : **4410092528674**
Option 3 ID : **4410092528675**
Option 4 ID : **4410092528676**

Q.3 निम्नलिखित में से कौन-सा, सर्वोत्तम रूप से यह स्पष्ट करता है कि जैविक कारक किसी व्यक्ति के स्वास्थ्य को किस प्रकार प्रभावित करते हैं?

Ans
✗ 1. आय का स्तर, स्वास्थ्य सेवाओं तक पहुंच की क्षमता निर्धारित करता है।
✗ 2. शहरी क्षेत्र में रहने से श्वसन संबंधी बीमारियों की संभावना बढ़ जाती है।
✗ 3. शिक्षा, स्वच्छता और पोषण के संबंध में जागरूकता को बढ़ाती है।
✓ 4. आनुवंशिक संरचना, रोग सुग्राहिता और पर्यावरण के साथ अंतःक्रिया को प्रभावित करती है।

Question ID : **441009648780**
Option 1 ID : **4410092549342**
Option 2 ID : **4410092549344**
Option 3 ID : **4410092549345**
Option 4 ID : **4410092549343**

Q.4 परिवार नियोजन और जनन स्वास्थ्य के संदर्भ में लक्षित दम्पतियों के लिए निम्नलिखित में से कौन-सा स्वास्थ्य शिक्षा क्षेत्र सबसे महत्वपूर्ण है?

Ans
✗ 1. प्रसवपूर्व देखरेख और उसका महत्व
✗ 2. स्तनपोषण का महत्व
✓ 3. गर्भनिरोधक विधियां
✗ 4. प्रतिरक्षीकरण कार्यक्रम

Question ID : **441009643525**
Option 1 ID : **4410092528297**
Option 2 ID : **4410092528295**
Option 3 ID : **4410092528294**
Option 4 ID : **4410092528296**

Q.5 ऐल्कोहॉल-आधारित हैंड रब का उपयोग करके हाथ धोने की विश्व स्वास्थ्य संगठन द्वारा अनुशंसित अवधि कितनी है?

Ans
✗ 1. 10-15 सेकंड
✗ 2. 60-80 सेकंड
✓ 3. 20-30 सेकंड
✗ 4. 5-10 सेकंड

Question ID : **441009643575**
Option 1 ID : **4410092528495**
Option 2 ID : **4410092528497**
Option 3 ID : **4410092528496**
Option 4 ID : **4410092528494**

Q.6 NABH के अंतर्गत, अस्पताल संक्रमण नियंत्रण का मुख्य घटक कौन-सा है?

Ans
✗ 1. मासिक स्टाफ रोटेशन
✗ 2. रोगी फीडबैक संग्रह
✗ 3. आवधिक सुविधा नवीनीकरण
✓ 4. हस्त स्वस्थवृत का अनुपालन

Question ID : **441009648573**
Option 1 ID : **4410092548481**
Option 2 ID : **4410092548484**
Option 3 ID : **4410092548482**
Option 4 ID : **4410092548483**

Q.7 प्राचीन मिस्र में प्रयुक्त निम्नलिखित में से कौन-सा उपचार आज के मानकों के अनुसार रोग विकृति विज्ञान के मिथ्याबोध को दर्शाता है?

Ans
✗ 1. हर्बल औषधियों का उपयोग
✓ 2. पाचन के लिए अरंडी के तेल का उपयोग
✗ 3. हानिकारक पदार्थों को निकालने के लिए रक्त-पात
✗ 4. नाड़ी (pulse) की मॉनीटरिंग

Question ID : **441009648493**
Option 1 ID : **4410092548139**
Option 2 ID : **4410092548141**
Option 3 ID : **4410092548140**
Option 4 ID : **4410092548142**

Q.8 निम्नलिखित में से कौन-सी बीमारी मुख्यतः अनुचित मलमूत्र निपटान से फैल सकती है?

Ans
✗ 1. जर्मन मीजिल्स (German measles)
✗ 2. अंतरंग लीशमैनियता (Visceral leishmaniasis)
✗ 3. जानपदिक कर्णपूर्वग्रंथिशोथ (Epidemic parotitis)
✓ 4. टाइफॉइड ज्वर (Typhoid fever)

Question ID : **441009643664**
Option 1 ID : **4410092528853**
Option 2 ID : **4410092528852**
Option 3 ID : **4410092528851**
Option 4 ID : **4410092528850**

QuickSarkari.com | WhatsApp Channel | Telegram: t.me/quick_sarkari

Q.9 निम्नलिखित में से कौन-सा स्वास्थ्य शिक्षा उपागम, प्रबंधित निवारण के रूप में भी जाना जाता है जिसमें निग्रह उपागम (coercive approaches) शामिल हैं, जो लोगों पर लगाए गए विभिन्न प्रकार के बाहरी नियंत्रण या कानूनों के माध्यम से स्वास्थ्य व्यवहार में परिवर्तन और स्वास्थ्य में सुधार का प्रयास करता है?

Ans
✗ 1. सेवा उपागम (Service approach)
✗ 2. प्राथमिक स्वास्थ्य देखभाल उपागम (Primary health care approach)
✓ 3. विनियामक उपागम (Regulatory approach)
✗ 4. स्वास्थ्य शिक्षा उपागम (Health education approach)

Question ID : **441009643508**
Option 1 ID : **4410092528227**
Option 2 ID : **4410092528229**
Option 3 ID : **4410092528226**
Option 4 ID : **4410092528228**

Q.10 एरिक एरिक्सन के अनुसार, एक शिशु का मनोसामाजिक कार्य क्या होता है?

Ans
✗ 1. स्वायत्तता बनाम लज्जा और शक (Autonomy vs. Shame and Doubt)
✗ 2. पहलशक्ति बनाम दोष (Initiative vs. Guilt)
✓ 3. विश्वास बनाम अविश्वास (Trust vs. Mistrust)
✗ 4. परिश्रम बनाम हीनता (Industry vs. Inferiority)

Question ID : **441009643625**
Option 1 ID : **4410092528697**
Option 2 ID : **4410092528694**
Option 3 ID : **4410092528696**
Option 4 ID : **4410092528695**

Q.11 ग्रामीण भारत में पर्यावरण स्वच्छता कार्यक्रमों में यूनिसेफ (UNICEF) की भागीदारी का मुख्य उद्देश्य क्या है?

Ans
✗ 1. शहरी जनसंख्या वृद्धि को बढ़ाना
✓ 2. बच्चों की बीमारियों और मृत्यु में कमी लाना तथा जीवन की गुणवत्ता में सुधार करना
✗ 3. औद्योगिक विकास को बढ़ावा देना
✗ 4. चिकित्सा पर्यटन को बढ़ावा देना

Question ID : **441009648446**
Option 1 ID : **4410092547945**
Option 2 ID : **4410092547944**
Option 3 ID : **4410092547943**
Option 4 ID : **4410092547946**

Q.12 स्वस्थ पाचन और स्लीप हाइजीन (sleep hygiene) को बढ़ावा देने के लिए निम्नलिखित में से कौन-सी प्रथा सबसे उपयुक्त है?

Ans
✗ 1. सोने से ठीक पहले डिनर करना
✗ 2. दोपहर के भोजन के बाद किसी भी तरह के आराम या नींद से बचना
✓ 3. सोने से कम से कम 3-4 घंटे पहले डिनर करना
✗ 4. रात्री का भोजन (डिनर) छोड़ना

Question ID : **441009648882**
Option 1 ID : **4410092549797**
Option 2 ID : **4410092549799**
Option 3 ID : **4410092549798**
Option 4 ID : **4410092549796**

Q.13 मेनिंगोकॉकसी मस्तिष्कावरणशोथ (meningococcal meningitis) के संचरण का प्राथमिक माध्यम निम्नलिखित में से कौन-सा है?

Ans ✔ 1. बिंदुक संक्रमण (Droplet infection)

✘ 2. रोगवाहक-जनित (Vector-borne)

✘ 3. फेको-ओरल मार्ग (Feco-oral route)

✘ 4. मच्छरों का काटना

Question ID : **441009674597**
Option 1 ID : **4410092652534**
Option 2 ID : **4410092652533**
Option 3 ID : **4410092652532**
Option 4 ID : **4410092652531**

Q.14 ग्रामीण समुदाय में मासिक धर्म स्वच्छता को बढ़ावा देने के लिए निम्नलिखित में से कौन-सी रणनीति सबसे उपयुक्त है?

Ans ✘ 1. जागरूकता प्रयासों को केवल वयस्क महिलाओं तक ही सीमित रखें।

✘ 2. आंगनवाड़ी कार्यकर्ताओं को बिना किसी परामर्श के नैपकिन वितरित करने के लिए प्रोत्साहित करें।

✘ 3. केवल पारंपरिक कपड़े वाले तरीकों को बढ़ावा दें, क्योंकि वे सांस्कृतिक रूप से स्वीकार्य हैं।

✔ 4. किशोरियों को शिक्षित करने और स्वच्छ शौचालय को बढ़ावा देने के लिए ASHA, SHG और VHSC सदस्यों को शामिल करें।

Question ID : **441009648862**
Option 1 ID : **4410092549708**
Option 2 ID : **4410092549709**
Option 3 ID : **4410092549711**
Option 4 ID : **4410092549710**

Q.15 अचेत रोगियों में नेत्र पैडिंग (eye padding) का उपयोग क्यों किया जाता है?

Ans ✔ 1. स्वच्छपटल शोथ के निवारण के लिए

✘ 2. नासास्राव के निवारण के लिए

✘ 3. कर्णशोथ के निवारण के लिए

✘ 4. ग्रसनीशोथ के निवारण के लिए

Question ID : **441009643634**
Option 1 ID : **4410092528730**
Option 2 ID : **4410092528732**
Option 3 ID : **4410092528731**
Option 4 ID : **4410092528733**

Q.16 निम्नलिखित में से कौन-सा, संयुक्त दृश्य-श्रव्य साधन का एक उदाहरण है?

Ans ✔ 1. टेलीविजन (Television)

✘ 2. रेडियो (Radio)

✘ 3. फ्लैनल ग्राफ (Flannel graph)

✘ 4. चाक बोर्ड (Chalkboard)

Question ID : **441009643533**
Option 1 ID : **4410092528327**
Option 2 ID : **4410092528326**
Option 3 ID : **4410092528328**
Option 4 ID : **4410092528329**

Q.17 स्वास्थ्य शिक्षा के संदर्भ में रेडियो को किस प्रकार की शिक्षा सहायक साधन (educational aid) के रूप में वर्गीकृत किया गया है?

Ans
✗ 1. डिजिटल सहायता (Digital aid)
✗ 2. दृश्य-श्रव्य सहायता (Audio-visual aid)
✗ 3. दृश्य सहायता (Visual aid)
✓ 4. श्रवण सहायता (Auditory aid)

Question ID : **441009648510**
Option 1 ID : **4410092548210**
Option 2 ID : **4410092548208**
Option 3 ID : **4410092548207**
Option 4 ID : **4410092548209**

Q.18 किस स्थिति में ऐल्कोहॉल आधारित हैंड रब के स्थान पर साबुन और जल से हाथ धोना आवश्यक है?

Ans
✗ 1. दस्ताने उतारने के बाद।
✓ 2. जब हाथ गंदे दिखाई दे रहे हों या रक्त/शरीर के तरलों से संदूषित हों
✗ 3. रोगी की चादर को व्यवस्थित करने के बाद
✗ 4. रोगी के कमरे में प्रवेश करने से पहले।

Question ID : **441009648643**
Option 1 ID : **4410092548770**
Option 2 ID : **4410092548769**
Option 3 ID : **4410092548768**
Option 4 ID : **4410092548771**

Q.19 सुरक्षित पेयजल के उपयोग से निम्नलिखित में से किस रोग के संचरण को रोका जा सकता है?

Ans
✗ 1. अतिकायता (Acromegaly)
✗ 2. स्कर्वी (Scurvy)
✗ 3. पेलाग्रा (Pellagra)
✓ 4. हैज़ा (Cholera)

Question ID : **441009643654**
Option 1 ID : **4410092528811**
Option 2 ID : **4410092528812**
Option 3 ID : **4410092528810**
Option 4 ID : **4410092528813**

Q.20 निम्नलिखित में से किस स्वास्थ्य शिक्षा सिद्धांत का मुख्य रूप से यह तात्पर्य है कि संप्रेषित किया जाने वाला संदेश प्राप्तकर्ता द्वारा किस हद तक विश्वसनीय माना जाता है?

Ans
✗ 1. प्रबलन (Reinforcement)
✓ 2. विश्वसनीयता (Credibility)
✗ 3. अभिप्रेरण (Motivation)
✗ 4. अभिबोध (Comprehension)

Question ID : **441009643442**
Option 1 ID : **4410092527960**
Option 2 ID : **4410092527958**
Option 3 ID : **4410092527961**
Option 4 ID : **4410092527959**

QuickSarkari.com | WhatsApp Channel | Telegram: t.me/quick_sarkari

Section : **Discipline4**

Q.1 कारखाना अधिनियम, 1948 के अनुसार, निम्नलिखित में से कौन-सा सुरक्षा प्रावधान विशेष रूप से श्रमिकों को रासायनिक और पर्यावरणीय खतरों से बचाने के लिए शामिल किया गया है?

Ans
✗ 1. श्रमिकों को प्रथम उपचार प्रक्रियाओं में प्रशिक्षण देना
✗ 2. हेलमेट और दस्तानों का प्रावधान
✓ 3. धूल और धुएं का उन्मूलन
✗ 4. आपात आई वॉश (eye wash) स्टेशनों का संस्थापन

Question ID : **441009669852**
Option 1 ID : **4410092633388**
Option 2 ID : **4410092633387**
Option 3 ID : **4410092633386**
Option 4 ID : **4410092633385**

Q.2 निम्नलिखित में से किसे किसी समुदाय या देश की समग्र स्वास्थ्य स्थिति और सामाजिक-आर्थिक विकास का व्यापक रूप से मान्यता प्राप्त संवेदनशील संकेतक माना जाता है?

Ans
✓ 1. प्रति 1000 जीवित जन्मों पर शिशु मृत्यु की संख्या
✗ 2. अस्पताल में बेड की संख्या और नर्स-मरीज़ अनुपात
✗ 3. प्रति 1000 व्यक्तियों पर सामुदायिक चिकित्सा डॉक्टरों की संख्या
✗ 4. प्रति 1000 व्यक्तियों पर सार्वजनिक स्वास्थ्य नर्सों की संख्या

Question ID : **441009644002**
Option 1 ID : **4410092530197**
Option 2 ID : **4410092530196**
Option 3 ID : **4410092530194**
Option 4 ID : **4410092530195**

Q.3 निम्नलिखित में से किस रोग को प्रायः 'सार्वजनिक स्वास्थ्य का जनक' कहा जाता है?

Ans
✗ 1. चेचक (Smallpox)
✗ 2. टाइफॉइड (Typhoid)
✗ 3. यक्ष्मा (Tuberculosis)
✓ 4. हैजा (Cholera)

Question ID : **441009649596**
Option 1 ID : **4410092552664**
Option 2 ID : **4410092552667**
Option 3 ID : **4410092552665**
Option 4 ID : **4410092552666**

QuickSarkari.com | WhatsApp Channel | Telegram: t.me/quick_sarkari

Q.4 स्वास्थ्य देखभाल से संबंधित संक्रमणों (HAI) की रोकथाम के लिए, निम्नलिखित में से किसे प्रमुख साक्ष्य-आधारित पद्धति माना जाता है?

Ans ✗ 1. अस्पताल के वार्डों में बार-बार धूमन

✗ 2. पूरे समय डबल दस्ताने पहनना

✓ 3. ऐल्कोहॉल-आधारित हैंड रब का उपयोग करके उचित हस्त स्वस्थवृत्त

✗ 4. हर्बल हैंड क्लींजरों का उपयोग

Question ID : **441009648560**
Option 1 ID : **4410092548427**
Option 2 ID : **4410092548430**
Option 3 ID : **4410092548429**
Option 4 ID : **4410092548428**

Q.5 प्राथमिक चिकित्सा प्रदाता किसे माना जा सकता है?

Ans ✗ 1. केवल एम्बुलेंस में काम करने वाले पराचिकित्सक

✗ 2. केवल आपातकालीन प्रशिक्षण वाला लाइसेंस प्राप्त डॉक्टर

✓ 3. कोई भी व्यक्ति जो प्राथमिक चिकित्सा में प्रशिक्षित हो और जो आपात स्थिति के दौरान तत्काल देखभाल प्रदान करता हो

✗ 4. केवल अस्पताल में देखभाल प्रदान करने वाला व्यक्ति

Question ID : **441009649637**
Option 1 ID : **4410092552830**
Option 2 ID : **4410092552828**
Option 3 ID : **4410092552829**
Option 4 ID : **4410092552831**

Q.6 निम्नलिखित में से कौन-सा शब्द, एक शिशु को धीरे धीरे दुग्ध आधारित आहार (स्तन्य दुग्ध या फॉर्मूला) से ठोस आहार और अन्य पेय पदार्थों की ओर स्थानांतरित करने की प्रक्रिया को संदर्भित करता है?

Ans ✗ 1. हल्कापन (Lightening)

✗ 2. निर्जर्मीकरण (Sterilising)

✗ 3. द्रुत हिमीकरण (Quickening)

✓ 4. स्तन्यमोचन (Weaning)

Question ID : **441009643681**
Option 1 ID : **4410092528920**
Option 2 ID : **4410092528919**
Option 3 ID : **4410092528921**
Option 4 ID : **4410092528918**

Q.7 ESI अधिनियम 1948 और इसके संशोधनों के अंतर्गत, बीमित श्रमिकों को प्रदान किए जाने वाले चिकित्सा लाभ के हिस्से के रूप में निम्नलिखित में से किसे सम्मिलित नहीं किया जाता है?

Ans ✗ 1. कार्य के दौरान चोट लगने पर अस्पताल में भर्ती होना

✓ 2. तीन महीने के लिए सवेतन सिक लीव

✗ 3. टीकाकरण सेवाएँ

✗ 4. परिवार नियोजन सेवाएँ

Question ID : **441009649547**
Option 1 ID : **4410092552479**
Option 2 ID : **4410092552478**
Option 3 ID : **4410092552476**
Option 4 ID : **4410092552477**

QuickSarkari.com | WhatsApp Channel | Telegram: t.me/quick_sarkari

Q.8 निम्नलिखित में से कौन-सा उपाय इक्षुधूलिमयता (bagassosis) को रोकता है?

Ans
✗ 1. मक्षिग्राही का उपयोग
✓ 2. श्वसन मास्क का उपयोग
✗ 3. क्लोरीनीकृत जल का उपयोग
✗ 4. मच्छरदानी का उपयोग

Question ID : **441009676739**
Option 1 ID : **4410092661132**
Option 2 ID : **4410092661131**
Option 3 ID : **4410092661130**
Option 4 ID : **4410092661129**

Q.9 आहार के माध्यम से नियासिन (niacin) के उचित सेवन से निम्नलिखित में से किस रोग को रोका जा सकता है?

Ans
✗ 1. गलगंड (Goitre)
✗ 2. रिकेट्स (Rickets)
✓ 3. पेलाग्रा (Pellagra)
✗ 4. क्रेटिनता (Cretinism)

Question ID : **441009643966**
Option 1 ID : **4410092530052**
Option 2 ID : **4410092530051**
Option 3 ID : **4410092530050**
Option 4 ID : **4410092530053**

Q.10 निम्नलिखित में से कौन-सा खाद्य घटक आहार तैयार करने के दौरान ताप प्रसंस्करण से मुख्यतः प्रभावित होता है?

Ans
✓ 1. विटामिन
✗ 2. वसा और तेल
✗ 3. प्रोटीन
✗ 4. कार्बोहाइड्रेट

Question ID : **441009649062**
Option 1 ID : **4410092550528**
Option 2 ID : **4410092550530**
Option 3 ID : **4410092550527**
Option 4 ID : **4410092550529**

Q.11 कारखाना अधिनियम, 1948 के अनुसार, निम्नलिखित में से कौन-सा प्रावधान विशेष रूप से लंबे कार्य समय और शारीरिक आयास को लक्षित करते हुए व्यावसायिक कल्याण सुनिश्चित करता है?

Ans
✓ 1. आश्रय, विश्राम कक्ष और आहार कक्षों का प्रावधान
✗ 2. कारखाना निरीक्षक की नियुक्ति
✗ 3. स्वच्छता के लिए सफाईकर्मियों की नियुक्ति
✗ 4. कार्यभार कम करने के लिए स्वचालित मशीनरी का उपयोग

Question ID : **441009649545**
Option 1 ID : **4410092552469**
Option 2 ID : **4410092552470**
Option 3 ID : **4410092552468**
Option 4 ID : **4410092552471**

QuickSarkari.com | WhatsApp Channel | Telegram: t.me/quick_sarkari

Q.12 निम्नलिखित में से कौन-सा वाल्व, रक्त को वाम अलिंद से वाम निलय में प्रवाहित करने के लिए खुलता है और फिर हृदय के पंपन चक्र के दौरान रक्त को अलिंद में वापस प्रवाहित होने से रोकने के लिए बंद हो जाता है?

Ans
✗ 1. फुप्फुसी वाल्व
✗ 2. त्रिकपर्दी वाल्व
✓ 3. द्विविलनी वाल्व
✗ 4. महाधमनी वाल्व

Question ID : **441009643711**
Option 1 ID : **4410092529041**
Option 2 ID : **4410092529038**
Option 3 ID : **4410092529039**
Option 4 ID : **4410092529040**

Q.13 50 kg वजन और 150 cm ऊंचाई वाले व्यक्ति के बॉडी मास इंडेक्स (body mass index) की गणना करें।

Ans
✗ 1. 25.15 kg/m²
✗ 2. 15.22 kg/m²
✓ 3. 22.22 kg/m²
✗ 4. 30 kg/m²

Question ID : **441009643782**
Option 1 ID : **4410092529321**
Option 2 ID : **4410092529320**
Option 3 ID : **4410092529319**
Option 4 ID : **4410092529318**

Q.14 निम्नलिखित में से कौन-सा लक्षण पेलाग्रा (pellagra) के 4D में शामिल नहीं है?

Ans
✗ 1. मनोभ्रंश (Dementia)
✓ 2. प्रलाप (Delirium)
✗ 3. अतिसार (Diarrhoea)
✗ 4. त्वक्शोथ (Dermatitis)

Question ID : **441009643856**
Option 1 ID : **4410092529616**
Option 2 ID : **4410092529617**
Option 3 ID : **4410092529614**
Option 4 ID : **4410092529615**

Q.15 टिनिया पेडिस (Tinea pedis) निम्नलिखित में से किस अंग का कवक संक्रमण (fungal infection) है?

Ans
✗ 1. सिर
✗ 2. नाखून
✗ 3. शरीर
✓ 4. पाद

Question ID : **441009644057**
Option 1 ID : **4410092530417**
Option 2 ID : **4410092530414**
Option 3 ID : **4410092530415**
Option 4 ID : **4410092530416**

QuickSarkari.com | WhatsApp Channel | Telegram: t.me/quick_sarkari

Q.16 भारत सरकार द्वारा खाद्य अपमिश्रण निवारण अधिनियम कब लागू किया गया था?

Ans
✔ 1. 1954
✘ 2. 1964
✘ 3. 1944
✘ 4. 1974

Question ID : **441009643796**
Option 1 ID : **4410092529375**
Option 2 ID : **4410092529376**
Option 3 ID : **4410092529374**
Option 4 ID : **4410092529377**

Q.17 निम्नलिखित में से कौन-सी प्रक्रिया, खाद्य पदार्थों की निधानी आयु (shelf life) और पोषक स्थायित्व को बढ़ाने से सबसे अधिक संबंधित है?

Ans
✘ 1. उत्सारण (Extrusion)
✔ 2. हिम परिरक्षण (Freeze preservation)
✘ 3. बेकिंग (Baking)
✘ 4. आयनकारी विकिरण (Ionising radiation)

Question ID : **441009666106**
Option 1 ID : **4410092618404**
Option 2 ID : **4410092618403**
Option 3 ID : **4410092618405**
Option 4 ID : **4410092618406**

Q.18 N95 मास्क एक प्रकार का श्वसित्र है, जो वायु में मौजूद कम से कम 95% कणों को फ़िल्टर करता है। N95 मास्क में N का क्या तात्पर्य है?

Ans
✘ 1. कोरोना के प्रति प्रतिरोधी नहीं (Not resistant to Corona)
✘ 2. COVID के प्रति प्रतिरोधी नहीं (Not resistant to COVID)
✘ 3. COVID के प्रति संवेदनशील नहीं (Not sensitive to COVID)
✔ 4. तेल के प्रति प्रतिरोधी नहीं (Not resistant to oil)

Question ID : **441009643604**
Option 1 ID : **4410092528613**
Option 2 ID : **4410092528611**
Option 3 ID : **4410092528612**
Option 4 ID : **4410092528610**

Q.19 आलू में मुख्यतः कौन-सा पोषक तत्व मौजूद होता है?

Ans
✘ 1. वसा
✔ 2. कार्बोहाइड्रेट
✘ 3. विटामिन
✘ 4. प्रोटीन

Question ID : **441009665948**
Option 1 ID : **4410092617773**
Option 2 ID : **4410092617771**
Option 3 ID : **4410092617774**
Option 4 ID : **4410092617772**

Q.20 निम्नलिखित में से कौन-सा ज्वरहर (antipyretic) दवा का उदाहरण है?

Ans
✗ 1. ऑगमेंटिन (Augmentin)
✓ 2. पैरासिटामोल (Paracetamol)
✗ 3. ओंडान्सेट्रॉन (Ondansetron)
✗ 4. एज़िथ्रोमाइसिन (Azithromycin)

Question ID : **441009676761**
Option 1 ID : **4410092661214**
Option 2 ID : **4410092661216**
Option 3 ID : **4410092661213**
Option 4 ID : **4410092661215**

Section : **Discipline5**

Q.1 ओडिनोफेगिया (odynophagia) क्या है?

Ans
✗ 1. अभिश्वसन (inhalation) में कठिनाई होना
✗ 2. पाचन में कठिनाई होना
✓ 3. निगलने के दौरान दर्द होना
✗ 4. मूत्रण (micturition) के दौरान दर्द होना

Question ID : **441009644241**
Option 1 ID : **4410092531159**
Option 2 ID : **4410092531160**
Option 3 ID : **4410092531158**
Option 4 ID : **4410092531161**

Q.2 आपदा प्रबंधन चक्र एक फ्रेमवर्क है, जो आपदा प्रबंधन के चरणों को रेखांकित करता है, जिसमें किस एक को छोड़कर निम्नलिखित सभी प्रमुख चरण शामिल होते हैं?

Ans
✓ 1. प्रहस्तन (manipulation)
✗ 2. पुनर्बहाली (recovery)
✗ 3. शमन (mitigation)
✗ 4. अनुक्रिया (response)

Question ID : **441009644156**
Option 1 ID : **4410092530813**
Option 2 ID : **4410092530811**
Option 3 ID : **4410092530810**
Option 4 ID : **4410092530812**

QuickSarkari.com | WhatsApp Channel | Telegram: t.me/quick_sarkari

Q.3 प्राथमिक स्वास्थ्य देखभाल के निम्नलिखित में से किस सिद्धांत का उद्देश्य, समुदायों के भीतर और उनके बीच स्वास्थ्य असमानताओं को दूर करने पर ध्यान केंद्रित करते हुए, चाहे उनकी भुगतान करने की क्षमता जो भी हो, स्वास्थ्य सेवाओं तक सार्वभौमिक पहुंच प्रदान करना है?

Ans
✗ 1. उचित प्रौद्योगिकी का उपयोग (Use of appropriate technology)
✓ 2. साम्यिक वितरण (Equitable distribution)
✗ 3. सामुदायिक भागीदारी (Community participation)
✗ 4. अंतरक्षेत्रीय समन्वय (Intersectoral coordination)

Question ID : **441009644289**
Option 1 ID : **4410092531353**
Option 2 ID : **4410092531350**
Option 3 ID : **4410092531351**
Option 4 ID : **4410092531352**

Q.4 वयस्क व्यक्तियों के लिए सामान्य विश्रान्ति नाड़ी दर कितनी होती है?

Ans
✗ 1. 80 से 120 स्पंद प्रति मिनट
✗ 2. 50 से 72 स्पंद प्रति मिनट
✓ 3. 60 से 100 स्पंद (beats) प्रति मिनट
✗ 4. 45 से 75 स्पंद प्रति मिनट

Question ID : **441009644191**
Option 1 ID : **4410092530951**
Option 2 ID : **4410092530952**
Option 3 ID : **4410092530950**
Option 4 ID : **4410092530953**

Q.5 व्यावसायिक परिवेश में प्रभावी टीमवर्क और समय प्रबंधन के लिए निम्नलिखित में से क यासबसे आवश्यक है?

Ans
✗ 1. टीमवर्क से बचना और केवल व्यक्तिगत कार्यों पर ध्यान केंद्रित करना
✗ 2. कार्य पूरा करने के लिए आखिरी क्षण तक प्रतीक्षा करना
✓ 3. स्पष्ट संचार, सहयोग और कार्यों की प्राथमिकता तय करना
✗ 4. समयसीमा की अनदेखी करना और समन्वय के बिना काम करना

Question ID : **441009656309**
Option 1 ID : **4410092579558**
Option 2 ID : **4410092579559**
Option 3 ID : **4410092579557**
Option 4 ID : **4410092579556**

Q.6 निम्नलिखित में से कौन-सा, आचार संहिता में प्रोफेशनल एथिक्स (professional ethics) का प्रमुख पहलू है?

Ans
✗ 1. अनैतिक कार्यों के लिए जवाबदेही से बचना
✗ 2. कार्यस्थल के नियमों और नीतियों की उपेक्षा करना
✗ 3. पेशेवर उत्तरदायित्वों के स्थान पर व्यक्तिगत हितों को प्राथमिकता देना
✓ 4. सहकर्मियों और ग्राहकों के साथ सम्मान और निष्पक्षता से पेश आना

Question ID : **441009656384**
Option 1 ID : **4410092579863**
Option 2 ID : **4410092579861**
Option 3 ID : **4410092579862**
Option 4 ID : **4410092579860**

QuickSarkari.com | WhatsApp Channel | Telegram: t.me/quick_sarkari

Q.7 निम्नलिखित में से किस एक को छोड़कर शेष सभी, स्वास्थ्य शिक्षा के सिद्धांत हैं?

Ans
✗ 1. सुदृढ़ीकरण और करके सीखना
✗ 2. विश्वसनीयता और अभिप्रेरण
✓ 3. हस्त कौशल और पूर्वाग्रह
✗ 4. उदाहरण स्थापित करना और अच्छे मानवीय संबंध बनाना

Question ID : **441009644135**
Option 1 ID : **4410092530728**
Option 2 ID : **4410092530726**
Option 3 ID : **4410092530729**
Option 4 ID : **4410092530727**

Q.8 निम्नलिखित में से कौन-सा शब्द किसी ऐसी चीज को न करने के लिए प्रयुक्त होता है जिसे एक विवेकशील व्यक्ति, उन विचारों के आधार पर जो सामान्यतः मानवीय मामलों को विनियमित करते हैं, करेगा, या किसी ऐसी चीज को करने के लिए प्रयुक्त होता है जिसे एक सविवेक और विवेकशील व्यक्ति नहीं करेगा?

Ans
✗ 1. बैटरी (Battery)
✗ 2. तीखी आलोचना (Assault)
✗ 3. मानहानि (Libel)
✓ 4. उपेक्षा (Negligence)

Question ID : **441009644374**
Option 1 ID : **4410092531693**
Option 2 ID : **4410092531691**
Option 3 ID : **4410092531692**
Option 4 ID : **4410092531690**

Q.9 नासिका से रक्तस्राव को वर्णित करने के लिए किस शब्द का उपयोग किया जाता है, चाहे रक्तस्राव स्वतः हो या नाक खुजलाने या किसी अभिघात के कारण हो?

Ans
✓ 1. नासारक्तस्रवण (Epistaxis)
✗ 2. अतिलालास्रावता (Ptyalism)
✗ 3. कर्णार्ति (Otalgia)
✗ 4. निद्रादंतचवर्ण (Bruxism)

Question ID : **441009644234**
Option 1 ID : **4410092531122**
Option 2 ID : **4410092531124**
Option 3 ID : **4410092531125**
Option 4 ID : **4410092531123**

Q.10 अल्पआयतनरक्तता आघात (hypovolemic shock) के मुख्य लक्षण क्या हैं?

Ans
✓ 1. हृद्क्षिप्रता और अल्परक्तदाब (Tachycardia and Hypotension)
✗ 2. हृद्क्षिप्रता और अतिरक्तदाब (Tachycardia and Hypertension)
✗ 3. हृदमंदता और अतिरक्तदाब (Bradycardia and Hypertension)
✗ 4. हृदमंदता और अल्परक्तदाब (Bradycardia and Hypotension)

Question ID : **441009644202**
Option 1 ID : **4410092530995**
Option 2 ID : **4410092530994**
Option 3 ID : **4410092530996**
Option 4 ID : **4410092530997**

QuickSarkari.com | WhatsApp Channel | Telegram: t.me/quick_sarkari

Q.11 जन्म के समय जीवन प्रत्याशा के संबंध में निम्नलिखित में से कौन-सा कथन सही है?

Ans

✗ 1. इसमें शिशु मृत्यु दर को सम्मिलित नहीं किया जाता है और केवल वयस्क उत्तरजीविता पर ध्यान केंद्रित किया जाता है।

✗ 2. इसका सामाजिक-आर्थिक विकास से कोई संबंध नहीं है।

✓ 3. यह शिशु मृत्यु दर से अत्यधिक प्रभावित होती है।

✗ 4. इसमें केवल उन लोगों पर विचार किया जाता है, जो बाल्यावस्था के बाद जीवित रहते हैं।

Question ID : **441009655969**
Option 1 ID : **4410092578178**
Option 2 ID : **4410092578180**
Option 3 ID : **4410092578177**
Option 4 ID : **4410092578179**

Q.12 निम्नलिखित में से कौन-सा कथन, आपदा आपातकालीन प्रबंधन के मूल सिद्धांतों के अनुसार आपदा जोखिम मूल्यांकन की व्यापक समझ को सर्वोत्तम रूप से दर्शाता है?

Ans

✓ 1. सामुदायिक भेद्यता को कम करके और जोखिम मानचित्रण, ट्रांसेक्ट वॉक (transect walks) और सामाजिक विश्लेषण जैसे माध्यमों का उपयोग करके क्षमता को बढ़ाकर जोखिम को कम किया जा सकता है।

✗ 2. भेद्यता और संकट समानार्थी हैं और आपदा परिणामों को समान रूप से प्रभावित करते हैं।

✗ 3. जोखिम, संकटों का एक निश्चित परिणाम है और इसे मानवीय हस्तक्षेप से कम नहीं किया जा सकता।

✗ 4. आपदाएं पूर्णतः प्राकृतिक होती हैं और इन्हें रोका नहीं जा सकता, केवल इस पर प्रतिक्रिया की जा सकती है।

Question ID : **441009654757**
Option 1 ID : **4410092573324**
Option 2 ID : **4410092573323**
Option 3 ID : **4410092573322**
Option 4 ID : **4410092573325**

Q.13 निम्नलिखित में से किस स्वास्थ्य समिति की स्थापना 1972 में की गई थी, जिसे स्वास्थ्य एवं परिवार नियोजन के तहत बहुउद्देशीय कार्यकर्ताओं की समिति के रूप में भी जाना जाता है?

Ans

✗ 1. भोरे समिति

✗ 2. मुदलियार समिति

✗ 3. मुखर्जी समिति

✓ 4. करतार सिंह समिति

Question ID : **441009644278**
Option 1 ID : **4410092531309**
Option 2 ID : **4410092531307**
Option 3 ID : **4410092531308**
Option 4 ID : **4410092531306**

Q.14 एक वर्ष से कम आयु के शिशुओं की श्यान लंबाई (recumbent length) मापने के लिए निम्नलिखित में से किसका उपयोग किया जाता है?

Ans
✔ 1. इन्फैंटोमीटर (Infantometer)
✘ 2. टोनोमीटर (Tonometer)
✘ 3. कैलोरीमीटर (Calorimeter)
✘ 4. शाकिर टेप (Shakir tape)

Question ID : **441009644089**
Option 1 ID : **4410092530542**
Option 2 ID : **4410092530544**
Option 3 ID : **4410092530545**
Option 4 ID : **4410092530543**

Q.15 निम्नलिखित में से किस प्रकार का अस्पताल मुख्य रूप से तृतीयक देखभाल प्रदान करता है?

Ans
✘ 1. प्राथमिक स्वास्थ्य केंद्र
✘ 2. सामुदायिक स्वास्थ्य केंद्र
✔ 3. मेडिकल कॉलेज अस्पताल
✘ 4. उपकेंद्र

Question ID : **441009644297**
Option 1 ID : **4410092531382**
Option 2 ID : **4410092531384**
Option 3 ID : **4410092531385**
Option 4 ID : **4410092531383**

Q.16 निम्नलिखित में से कौन-सी, किसी प्रोजेक्ट में स्कोप क्रिप (scope creep) को रोकने के लिए सर्वोत्तम रणनीति है?

Ans
✘ 1. दस्तावेजीकरण के बिना असीमित परिवर्तनों की अनुमति देना
✘ 2. हितधारकों के फीडबैक की उपेक्षा करना और समायोजन के बिना आगे बढ़ना
✔ 3. प्रोजेक्ट के दायरे को स्पष्ट रूप से परिभाषित करना और परिवर्तन नियंत्रण प्रक्रियाओं को लागू करना
✘ 4. समय और बजट की बाधाओं पर विचार किए बिना प्रोजेक्ट के दायरे का विस्तार करना

Question ID : **441009656932**
Option 1 ID : **4410092582075**
Option 2 ID : **4410092582076**
Option 3 ID : **4410092582074**
Option 4 ID : **4410092582077**

Q.17 राष्ट्रीय आपदा प्रबंधन संस्थान के मुख्यालय कहाँ स्थित हैं?

Ans
✔ 1. नई दिल्ली
✘ 2. मुंबई
✘ 3. बेंगलुरु
✘ 4. कोलकाता

Question ID : **441009644149**
Option 1 ID : **4410092530785**
Option 2 ID : **4410092530783**
Option 3 ID : **4410092530782**
Option 4 ID : **4410092530784**

Q.18 निम्नलिखित में से कौन-सा एक प्रमुख नैतिक सिद्धांत है, जो सूचना को निजी और सुरक्षित रखने के दायित्व पर बल देता है?

Ans
✗ 1. उपकार
✗ 2. निष्ठा
✗ 3. सत्यवादिता
✓ 4. गोपनीयता

Question ID : **441009644384**
Option 1 ID : **4410092531733**
Option 2 ID : **4410092531732**
Option 3 ID : **4410092531731**
Option 4 ID : **4410092531730**

Q.19 पहले से यह तय करने की प्रक्रिया 'क्या करना है, कैसे करना है, कब करना है और किसे करना है', _____ कहलाती है।

Ans
✓ 1. योजना (Planning)
✗ 2. समन्वय (Coordinating)
✗ 3. निर्देशक (Directing)
✗ 4. आयोजन (Organising)

Question ID : **441009644444**
Option 1 ID : **4410092531967**
Option 2 ID : **4410092531970**
Option 3 ID : **4410092531969**
Option 4 ID : **4410092531968**

Q.20 NHANES एंथ्रोपोमेट्री प्रोटोकॉल (anthropometry protocol) में, यदि ISIS प्रणाली में दर्ज मापन प्री-प्रोग्राम्ड एडिट रेंज से बाहर हो, तो रिकॉर्डर को क्या करना चाहिए?

Ans
✓ 1. रिकॉर्डर को आगे बढ़ने से पहले परीक्षक से मापन को सत्यापित करने के लिए कहना चाहिए।
✗ 2. रिकॉर्डर को मान को अमान्य के रूप में चिह्नित करना चाहिए तथा इसकी सूचना पर्यवेक्षक को देनी चाहिए।
✗ 3. रिकॉर्डर को वैल्यू डिलीट कर देनी चाहिए और मापन को छोड़ देना चाहिए।
✗ 4. रिकॉर्डर को अपेक्षित रेंज के भीतर आने के लिए वैल्यू को एडजस्ट करना चाहिए।

Question ID : **441009649882**
Option 1 ID : **4410092553802**
Option 2 ID : **4410092553803**
Option 3 ID : **4410092553800**
Option 4 ID : **4410092553801**

QuickSarkari.com | WhatsApp Channel | Telegram: t.me/quick_sarkari

Quick Sarkari

Thank you for studying with QuickSarkari!

Get the latest Sarkari Naukri notifications, admit cards, results, answer keys and free previous-year papers first - follow us on WhatsApp and Telegram.

Visit www.quicksarkari.com

Join our WhatsApp Channel

https://whatsapp.com/channel/0029VaxxbrREquiPoXTWM229

Join our Telegram Channel

https://t.me/quick_sarkari

Share this PDF with your friends preparing for DSSSB exams.