Quick Sarkari

DSSSB PREVIOUS YEAR PAPER WITH ANSWER KEY

DSSSB Xerox Operator

30 June 2025 · Shift 3

डीएसएसएसबी ज़ेरॉक्स ऑपरेटर – 30 जून 2025, शिफ्ट 3 का प्रश्न पत्र, उत्तर कुंजी सहित

200	120 min	1 / −0.25	EN + HI
Questions / प्रश्न	Duration / समय	Marks per Q / अंक	Language / भाषा

Sections: General intelligence and Reasoning Ability, General Awareness, Arithmetical and Numerical Ability, English Language and Comprehension, Hindi Language and Comprehension

INSIDE THIS PDF / इस PDF में

Question Paper in English + Hindi with Answer Key (correct option marked in green) + answer table — Page 2–53
प्रश्न पत्र अंग्रेज़ी + हिंदी में, उत्तर कुंजी सहित (सही विकल्प हरे रंग में) + उत्तर तालिका

Official DSSSB Response Sheet with Answer Key (correct option ticked in green) — Page 54–121
आधिकारिक DSSSB रिस्पॉन्स शीट, उत्तर कुंजी सहित (सही विकल्प हरे टिक से)

HOW TO USE THIS PAPER / इस पेपर का उपयोग कैसे करें

1. Attempt the paper first as a timed online mock test (link below).
   पहले नीचे दिए लिंक से इसे टाइमर के साथ ऑनलाइन मॉक टेस्ट के रूप में हल करें।
2. Check your score, section-wise analysis and solutions online.
   ऑनलाइन अपना स्कोर, खंड-वार विश्लेषण और हल देखें।
3. Use this PDF for revision. Correct answers are shown in green.
   दोहराने के लिए इस PDF का उपयोग करें। सही उत्तर हरे रंग में दिए गए हैं।

Attempt this paper as a FREE online mock test
इस पेपर को फ्री ऑनलाइन मॉक टेस्ट के रूप में हल करें – टाइमर, स्कोर और हल के साथ
https://quicksarkari.com/dsssb-xerox-operator-30-june-2025-shift-3-mock-test/

All DSSSB Xerox Operator papers and mock tests: **quicksarkari.com/dsssb-mock-test/#xerox-operator**

Join WhatsApp Channel | Join Telegram Channel

DSSSB Xerox Operator – Question Paper (English + Hindi)

DSSSB ज़ेरॉक्स ऑपरेटर – प्रश्न पत्र (अंग्रेज़ी + हिंदी)

Exam held on 30 June 2025, Shift 3 · 200 questions · correct answers marked ✔ in green
परीक्षा तिथि 30 जून 2025, शिफ्ट 3 · 200 प्रश्न · सही उत्तर हरे रंग में ✔ से चिह्नित

> The official paper for this shift was in Hindi. The English version of each question is a translation prepared by QuickSarkari; the language-section questions are shown as asked.
> इस शिफ्ट का आधिकारिक प्रश्न पत्र हिंदी में था। प्रत्येक प्रश्न का अंग्रेज़ी संस्करण QuickSarkari द्वारा तैयार किया गया अनुवाद है; भाषा खंड के प्रश्न मूल रूप में दिए गए हैं।

General intelligence and Reasoning Ability

Q.1 Each letter in the word EXCLAIM is arranged in alphabetical order. How many letters are there in the English alphabetical series between the fourth letter from the left and the second letter from the right in the new letter-cluster thus formed?

शब्द EXCLAIM के प्रत्येक अक्षर को वर्णमाला क्रम में व्यवस्थित किया जाता है। इस प्रकार बने नए अक्षर-समूह में बाएं से चौथे अक्षर और दाएं से दूसरे अक्षर के बीच अंग्रेजी वर्णमाला क्रम में कितने अक्षर हैं?

(1) 4
(2) 6
(3) 3 ✔
(4) 2

Q.2 In the word ABDOMEN, each vowel is replaced by the letter immediately following it in the English alphabetical order and each consonant is replaced by the letter immediately preceding it in the English alphabetical order. Which of the following letters will be fourth from the left in the new group of letters thus formed?

शब्द ABDOMEN में प्रत्येक स्वर को अंग्रेजी वर्णमाला क्रम में उसके ठीक बाद वाले अक्षर से बदल दिया जाता है और प्रत्येक व्यंजन को अंग्रेजी वर्णमाला क्रम में उसके ठीक पहले वाले अक्षर से बदल दिया जाता है। निम्नलिखित में से कौन-सा अक्षर इस प्रकार बने अक्षरों के नए समूह में बाएँ से चौथा होगा?

(1) P ✔
(2) A
(3) C
(4) B

Q.3 A, B, C, D, E and F are sitting around a circular table, facing the centre. Only three people sit between E and D when counted from the left of D. F sits to the immediate right of E. B is not an immediate neighbour of F. A sits second to the left of B. Who sits to the immediate right of D?

A, B, C, D, E और F एक गोल मेज के परितः केंद्र की ओर अभिमुख होकर बैठे हैं। D के बाएं से गिनने पर, E और D के बीच केवल तीन व्यक्ति बैठे हैं। F, E के ठीक दाएं पड़ोस में बैठा है। B, F का निकटतम पड़ोसी नहीं है। A, B के बाएं से दूसरे स्थान पर बैठा है। D के ठीक दाएं पड़ोस में कौन बैठा है?

(1) B ✔
(2) C
(3) E
(4) A

Q.4 C is the father of B. B is the mother of D. D is the son of E. F is the father of E. How is C related to F?

C, B का पिता है। B, D की माता है। D, E का पुत्र है। F, E का पिता है। C का F से क्या संबंध है?

(1) Son's wife's brother / पुत्र की पत्नी का भाई

(2) Son's wife's father / पुत्र की पत्नी का पिता ✔

(3) Brother / भाई

(4) Father / पिता

Q.5 If each letter of the word BLASTED is arranged in English alphabetical order, the position of how many letters will remain unchanged?

यदि शब्द BLASTED के प्रत्येक अक्षर को अंग्रेजी वर्णमाला क्रम में व्यवस्थित किया जाए, तो कितने अक्षरों का स्थान अपरिवर्तित रहेगा?

(1) 1

(2) 0 ✔

(3) 3

(4) 2

Q.6 In a row of people sitting facing north, Nisha is 21st from the left end. Usha is 12th from the left end. Usha is exactly midway between Nisha and Dinesh. If Dinesh is 24th from the right end of the row, how many people are there in the row?

उत्तर दिशा की ओर अभिमुख होकर बैठे लोगों की एक पंक्ति में, निशा बाएं छोर से 21वें स्थान पर है। उषा बाएं छोर से 12वें स्थान पर है। निशा और दिनेश के ठीक बीच में उषा है। यदि दिनेश पंक्ति के दाएं छोर से 24वें स्थान पर है, तो पंक्ति में कितने लोग हैं?

(1) 30

(2) 29

(3) 26 ✔

(4) 33

Q.7 In a row of people sitting facing north, Anil is 23rd from the right end. Priyank is 12th from the right end. Priyank is exactly midway between Anil and Purva. If Purva is 27th from the left end of the row, how many people are there in the row?

उत्तर दिशा की ओर अभिमुख होकर बैठे लोगों की एक पंक्ति में, अनिल दाएं छोर से 23वें स्थान पर है। प्रियांक दाएं छोर से 12वें स्थान पर है। अनिल और पूर्वा के ठीक बीच में प्रियांक है। यदि पूर्वा पंक्ति के बाएं छोर से 27वें स्थान पर है, तो पंक्ति में कितने लोग हैं?

(1) 28

(2) 31

(3) 27 ✔

(4) 32

Q.8 In a certain code language, 'jar gum chest' is coded as 'ur hd xv' and 'woman jar youth' is coded as 'hd ho du'. How will 'jar' be coded in the given language?

एक निश्चित कूट भाषा में, 'jar gum chest' को 'ur hd xv' के रूप में कूटबद्ध किया जाता है और 'woman jar youth' को 'hd ho du' के रूप में कूटबद्ध किया जाता है। दी गई भाषा में 'jar' को किस प्रकार कूटबद्ध किया जाएगा?

(1) hd ✔

(2) xv

(3) ho

(4) ur

Q.9 In a certain code language, IVFM is coded as 16-3-19-12 and SAND is coded as 6-24-11- 21. What will be the code for QSLX in the given language?

किसी निश्चित कूट भाषा में IVFM को 16-3-19-12 के रूप में कूटबद्ध किया गया है और SAND को 6-24-11- 21 के रूप में कूटबद्ध किया गया है। दी गई भाषा में QSLX का कूट क्या होगा?

(1) 8-6-13-1 ✔

(2) 10-8-14-2

(3) 9-4-12-2

(4) 9-5-13-3

Q.10 C is the father of B. B is the father of D. D is the son of E. F is the mother of E. How is C related to F?

C, B का पिता है। B, D का पिता है। D, E का पुत्र है। F, E की माता है। C का F से क्या संबंध है?

(1) Daughter's husband's brother / पुत्री के पति का भाई

(2) Father / पिता

(3) Daughter's husband's father / पुत्री के पति का पिता ✔

(4) Brother / भाई

Q.11 Ketan starts from point Y and drives 25 km towards the west. He then turns left, drives 59 km, then turns left and drives 21 km. He then turns left and drives 46 km. He then turns left and drives 48 km. He then turns right, drives 13 km, then turns left and drives 41 km to stop at point Z. How far (shortest distance) and in which direction should he drive in order to reach point Y again? (All turns are 90-degree turns only unless specified.)

केतन बिंदु Y से चलना शुरू करता है और पश्चिम की ओर 25 km ड्राइव करता है। फिर वह बाएं मुड़ता है, 59 km ड्राइव करता है, फिर बाएं मुड़ता है और 21 km ड्राइव करता है। फिर वह बाएं मुड़ता है और 46 km ड्राइव करता है। फिर वह बाएं मुड़ता है और 48 km ड्राइव करता है। फिर वह दाएं मुड़ता है, 13 km ड्राइव करता है, फिर बाएं मुड़ता है और बिंदु Z पर रुकने के लिए 41 km ड्राइव करता है। बिंदु Y पर फिर से पहुंचने के लिए उसे कितनी दूर (निकटतम दूरी) और किस दिशा में ड्राइव करना चाहिए? (सभी मोड़ केवल 90-डिग्री मोड़ हैं, जब तक कि निर्दिष्ट न किया गया हो।)

(1) 93 km, towards the east / 93 km, पूर्व की ओर ✔

(2) 84 km, towards the east / 84 km, पूर्व की ओर

(3) 96 km, towards the west / 96 km,पश्चिम की ओर

(4) 88 km, towards the west / 88 km, पश्चिम की ओर

Q.12 Seven boxes I, J, K, L, M, N and T are kept one above the other, but not necessarily in the same order. Only two boxes are kept below K. Only two boxes are kept between K and M. Only one box is kept between M and T. I is kept immediately above L. N is kept at some position below J. How many boxes are kept between J and I?

सात डिब्बे I, J, K, L, M, N और T एक के ऊपर एक रखे गए हैं, लेकिन जरूरी नहीं कि इसी क्रम में रखे गए हों। K के नीचे केवल दो डिब्बे रखे गए हैं। K और M के बीच केवल दो डिब्बे रखे गए हैं। M और T के बीच केवल एक डिब्बा रखा गया है। I को L के ठीक ऊपर रखा गया है। N को J के नीचे किसी स्थान पर रखा गया है। J और I के बीच कितने डिब्बे रखे गए हैं?

(1) One / एक

(2) Four / चार ✔

(3) Two / दो

(4) Three / तीन

Q.13 In a certain code language, 'SOUL' is coded as '3729' and 'LOST' is coded as '9238'. What is the code for 'U' in the given code language?

एक निश्चित कूट भाषा में, 'SOUL' को '3729' के रूप में कूटबद्ध किया जाता है और 'LOST' को '9238' के रूप में कूटबद्ध किया जाता है। दी गई कूट भाषा में 'U' के लिए कूट क्या है?

(1) 8

(2) 3

(3) 7 ✔

(4) 9

Q.14 A, B, C, D, E, F and G are sitting around a circular table, facing the centre. Only two people sit between G and C when counted from the left of C. D sits third to the left of B. E sits to the immediate right of B. E sits second to the left of G. F is an immediate neighbour of D. How many people sit between A and C when counted from the right of C?

A, B, C, D, E, F और G एक गोल मेज के परित: केंद्र की ओर अभिमुख होकर बैठे हैं। C के बाएं से गिनने पर G और C के बीच केवल दो लोग बैठे हैं। D, B के बाएं तीसरे स्थान पर बैठा है। E, B के ठीक दाएं बैठा है। E, G के बाएं दूसरे स्थान पर बैठा है। F, D का निकटतम पड़ोसी है। C के दाएं से गिनने पर A और C के बीच कितने लोग बैठे हैं?

(1) 4

(2) 3

(3) 1

(4) 2 ✔

Quick Sarkari

Q.15 A group of numbers/symbols is coded using letter codes as per the codes given below and the conditions that follow. If none of the conditions applies, then the codes for the respective number/symbol as given in the table are to be followed directly.
Number/Symbol ?
!
/ = * + - > { # 2 5 7 9 Code M P T X Z B Y W L C A N K J Conditions:
(i) If the first element is a symbol and the last element is a number, then the codes of these two (the first and the last element)
are to be interchanged.
(ii) If the first element is an odd number and the last element is an even number, then the first and the last element are to be coded as ©.
(iii) If the first element is a symbol and the third element is an odd number, then the first and second codes will be interchanged and the third and fourth codes will be interchanged.
What will be the code for the following group?
= 2 7 #

संख्याओं/प्रतीकों के एक समूह को नीचे दिए गए कूट और उसके बाद दिए गई स्थितियों के अनुसार अक्षर कूट का उपयोग करके कूटबद्ध किया जाता है। यदि कोई भी स्थिति लागू नहीं होती है, तो तालिका में दिए गए अनुसार संबंधित संख्या/प्रतीक के लिए कूटों का प्रत्यक्ष रूप से अनुसरण किया जाएगा।
संख्या/प्रतीक ?
!
/ = * + - > { # 2 5 7 9 कूट M P T X Z B Y W L C A N K J स्थितियाँ:
(i) यदि पहला अवयव एक प्रतीक है और अंतिम अवयव एक संख्या है, तो इन दोनों (पहले और अंतिम अवयव)
के कूट को आपस में बदला जाना है।
(ii) यदि पहला अवयव एक विषम संख्या है और अंतिम अवयव एक सम संख्या है, तो पहले और अंतिम तत्व को © के रूप में कूटबद्ध किया जाना चाहिए।
(iii) यदि पहला अवयव एक प्रतीक है और तीसरा अवयव एक विषम संख्या है, तो पहले और दूसरे कूट को आपस में बदल दिया जाएगा और तीसरे और चौथे कूट को आपस में बदल दिया जाएगा।
निम्नलिखित समूह के लिए कूट क्या होगा?
= 2 7 #

(1) AXCK ✔
(2) CKXA
(3) XAKC
(4) AKXC

Q.16 If each letter of the word JUMPER is arranged in alphabetical order, the position of how many letters will remain unchanged?

यदि शब्द JUMPER के प्रत्येक अक्षर को वर्णमाला क्रम में व्यवस्थित किया जाए, तो कितने अक्षरों की स्थिति अपरिवर्तित रहेगी?

(1) Three / तीन
(2) Two / दो ✔
(3) One / एक
(4) None / एक की भी नहीं

Q.17 Starting from her college, Anvita walked 170 m towards the west. Then she turned right and walked 120 m, after which she turned left and walked 270 m. Finally, she turns left and reaches her home after walking 120 m.
How far (shortest distance) is her home from the college?
(All turns are 90° turns only unless specified.)

अन्विता अपने कॉलेज चलना शुरू करते हुए पश्चिम की ओर 170 m चली। फिर वह दाएँ मुड़कर 120 m चली उसके बाद बाएँ मुड़कर 270 m चली। अंत में वह बाएँ मुड़कर 120 m चलने के बाद अपने घर पहुँच जाती है। कॉलेज से उसका घर कितनी दूर (सबसे छोटी दूरी) है?
(सभी मोड़ केवल 90° के मोड़ हैं जब तक कि निर्दिष्ट न किया गया हो।)

(1) 400 m
(2) 270 m
(3) 440 m ✔
(4) 390 m

Q.18 Read the given statements and conclusions carefully. Assuming that the information given in the statements is true, even if it appears to be at variance with commonly known facts, decide which of the given conclusion(s) logically follow(s) from the statements.
Statements:
I. Some classes are trainings.
II. Some trainings are practices.
Conclusions:
I. Some classes are practices.
II. All practices are trainings.

दिए गए कथनों और निष्कर्षों को ध्यानपूर्वक पढ़ें। यह मानते हुए कि कथनों में दी गई जानकारी सत्य है, भले ही वह सामान्यतः ज्ञात तथ्यों से भिन्न प्रतीत होती हो, तय करें कि दिए गए निष्कर्षों में से कौन-सा/से निष्कर्ष कथनों का तार्किक रूप से अनुसरण करता है/करते हैं।
कथन:
I. कुछ कक्षाएं, प्रशिक्षण हैं।
II. कुछ प्रशिक्षण, अभ्यास हैं।
निष्कर्ष:
I. कुछ कक्षाएँ, अभ्यास हैं।
II. सभी अभ्यास, प्रशिक्षण हैं।

(1) Only conclusion I follows. / केवल निष्कर्ष I अनुसरण करता है।
(2) Only conclusion II follows. / केवल निष्कर्ष II अनुसरण करता है।
(3) Neither conclusion I nor II follows. / न तो निष्कर्ष I और न ही II अनुसरण करता है। ✔
(4) Both conclusions I and II follow. / निष्कर्ष I और II दोनों अनुसरण करते हैं।

QuickSarkari.com | WhatsApp Channel | Telegram: t.me/quick_sarkari

Q.19 Refer to the following series and answer the question given below (all numbers are single-digit numbers only). Counting is to be done from left to right only.
(Left) 4 9 7 4 1 3 3 1 2 7 4 4 2 8 2 7 9 7 7 6 4 8 3 6 1 8 7 (Right)
How many odd numbers are there, each of which is immediately preceded by an odd number and immediately followed by another odd number?

निम्नलिखित श्रृंखला का संदर्भ लें और नीचे दिए गए प्रश्न का उत्तर दें (सभी संख्याएँ केवल एकल अंकीय संख्याएँ हैं)। गिनती केवल बाएँ से दाएँ की जानी है।
(बाएँ) 4 9 7 4 1 3 3 1 2 7 4 4 2 8 2 7 9 7 7 6 4 8 3 6 1 8 7 (दाएँ)
ऐसी कितनी विषम संख्याएँ हैं, जिनमें से प्रत्येक के ठीक पहले एक विषम संख्या तथा ठीक बाद एक अन्य विषम संख्या है?

(1) 7
(2) **4 ✔**
(3) 6
(4) 5

Q.20 If each letter of the word GRANTED is arranged in alphabetical order, the position of how many letters will remain unchanged?

यदि शब्द GRANTED के प्रत्येक अक्षर को वर्णमाला क्रम में व्यवस्थित किया जाए, तो कितने अक्षरों की स्थिति अपरिवर्तित रहेगी?

(1) Two / दो
(2) Three / तीन
(3) **None / एक की भी नहीं ✔**
(4) One / एक

Q.21 Based on the rearrangement of the positions of letters, MIXER is related to EIMRX in a certain way. In the same way, PITCH is related to CIPHT. Following the same logic, TRUNK is related to which of the following?

अक्षरों की स्थिति के पुनर्व्यवस्था के आधार पर एक निश्चित तरीके से MIXER का संबंध EIMRX से है। इसी प्रकार, PITCH का संबंध CIPHT से है। उसी तर्क का पालन करते हुए, TRUNK का संबंध निम्नलिखित में से किससे है?

(1) NKUTR
(2) **NRTKU ✔**
(3) KNRTU
(4) UTRNK

QuickSarkari.com | WhatsApp Channel | Telegram: t.me/quick_sarkari

Q.22 Study the given statements and conclusions carefully. Assuming that the information given in the statements is true, even if it appears to be at variance with commonly known facts, decide which of the given conclusions logically follows from the statements.
Statements:
No bird is a fish.
All fish are reptiles.
Conclusions:
(I) No bird is a reptile.
(II) Some reptiles are fish.
दिए गए कथनों और निष्कर्षों का ध्यानपूर्वक अध्ययन कीजिए। यह मानते हुए कि कथनों में दी गई जानकारी सत्य है, भले ही वह सामान्य रूप से ज्ञात तथ्यों से भिन्न प्रतीत होती हो, तय कीजिए कि दिए गए निष्कर्षों में से कौन-सा,
कथनों का तार्किक रूप से अनुसरण करता है।
कथन:
कोई पक्षी, मछली नहीं है।
सभी मछली, सरीसृप हैं।
निष्कर्ष:
(I) कोई पक्षी, सरीसृप नहीं है।
(II) कुछ सरीसृप, मछली हैं।

(1) Both conclusions (I) and (II) follow. / निष्कर्ष (I) और (II) दोनों अनुसरण करते हैं।
(2) Only conclusion (II) follows. / केवल निष्कर्ष (II) अनुसरण करता है। ✔
(3) Only conclusion (I) follows. / केवल निष्कर्ष (I) अनुसरण करता है।
(4) Neither conclusion (I) nor (II) follows. / न तो निष्कर्ष (I) और न ही (II) अनुसरण करता है।

Q.23 Based on the English alphabetical order, three of the following four letter-cluster pairs are alike in a certain way and thus form a group. Which letter-cluster pair does not belong to that group?
(Note: The odd letter-cluster pair is not based on the number of consonants/vowels or their position.)
अंग्रेजी वर्णमाला क्रम के आधार पर, निम्नलिखित चार अक्षर-समूह युग्मों में से तीन एक निश्चित तरीके से एकसमान हैं और इस प्रकार एक ग्रुप बनाते हैं। कौन-सा अक्षर-समूह युग्म, उस ग्रुप से संबंधित नहीं है?
(नोट: असंगत अक्षर-समूह युग्म, व्यंजनों/स्वरों की संख्या या उनकी स्थिति पर आधारित नहीं है।)

(1) CT – GP ✔
(2) WV – AT
(3) LY – PW
(4) QI – UG

Q.24 Based on the English alphabetical order, three of the following four letter-clusters are alike in a certain way and thus form a group. Which letter-cluster does not belong to that group?
(Note: The odd letter-cluster is not based on the number of consonants/vowels or their position.)
अंग्रेजी वर्णमाला क्रम पर आधारित, निम्नलिखित चार अक्षर-समूहों में से तीन एक निश्चित तरीके से समान हैं और इस प्रकार एक ग्रुप बनाते हैं। कौन-सा अक्षर-समूह उस ग्रुप से संबंधित नहीं है?
(नोट: असंगत अक्षर समूह, व्यंजनों/स्वरों की संख्या या उनकी स्थिति पर आधारित नहीं है।)

(1) CWQ
(2) BVP
(3) AUO
(4) DXM ✔

Q.25 If 'A' stands for '÷', 'B' stands for '×', 'C' stands for '+' and 'D' stands for '−', what will come in place of the question mark (?) in the following equation?
28 C 9 D 4 B 12 A 2 = ?
यदि 'A' का अर्थ '÷' है, 'B' का अर्थ '×' है, 'C' का अर्थ '+' है और 'D' का अर्थ '−' है, तो निम्नलिखित समीकरण में प्रश्न-चिह्न (?) के स्थान पर क्या आएगा?
28 C 9 D 4 B 12 A 2 = ?

(1) 13 ✔
(2) 14
(3) 27
(4) 31

Q.26 Based on the English alphabetical order, three of the following four letter-cluster pairs are alike in a certain way and thus form a group. Which letter-cluster pair does not belong to that group?
(Note: The odd letter-cluster pair is not based on the number of consonants/vowels or their position.)
अंग्रेजी वर्णमाला क्रम के आधार पर, निम्नलिखित चार अक्षर-समूह युग्मों में से तीन एक निश्चित तरीके से एकसमान हैं और इस प्रकार वे एक ग्रुप बनाते हैं। कौन-सा अक्षर-समूह युग्म उस ग्रुप से संबंधित नहीं है?
(नोट: असंगत अक्षर-समूह युग्म, व्यंजनों/स्वरों की संख्या या उनकी स्थिति पर आधारित नहीं है।)

(1) FC-AH
(2) JG-EL
(3) PM-KR
(4) LI-GM ✔

Q.27 What should come in place of the question mark (?) in the given series?
58, 71, ?, 109, 134, 163
दी गई श्रृंखला में प्रश्न-चिन्ह (?) के स्थान पर क्या आना चाहिए?
58, 71, ?, 109, 134, 163

(1) 96
(2) 82
(3) 88 ✔
(4) 78

Q.28 Select the pair that follows the same pattern as that followed by the pairs given below. Both pairs follow the same pattern.
OMU : UIS NQR : TMP
उस युग्म का चयन करें, जो नीचे दिए गए युग्मों के समान पैटर्न का अनुसरण करता है। दोनों युग्म समान पैटर्न का अनुसरण करते हैं।
OMU : UIS NQR : TMP

(1) HRT : HNQ
(2) KSN : POM
(3) MHP : SDN ✔
(4) LQI : PMH

Quick Sarkari

Q.29 If 1 is added to each odd digit and 2 is subtracted from each even digit in the number 32167854, what will be the sum of the smallest and the largest digits of the new number thus formed?

यदि संख्या 32167854 में प्रत्येक विषम अंक में 1 जोड़ा जाए तथा प्रत्येक सम अंक में से 2 घटाया जाए, तो इस प्रकार बनने वाली नई संख्या के सबसे छोटे तथा सबसे बड़े अंकों का योगफल कितना होगा?

(1) **8 ✔**
(2) 7
(3) 9
(4) 6

Q.30 Based on the English alphabetical order, EBDF is related to KHJL in a certain way. In the same way, GDFH is related to MJLN. Following the same logic, IFHJ is related to which of the following?

अंग्रेजी वर्णमाला क्रम के आधार पर एक निश्चित तरीके से EBDF का संबंध KHJL से है। उसी तरीके से GDFH का संबंध MJLN से है। उसी तर्क का अनुसरण करते हुए, IFHJ का संबंध निम्नलिखित में से किससे है?

(1) OLPN
(2) **OLNP ✔**
(3) LONP
(4) LOPN

Q.31 Select the correct mirror image of the given figure when the mirror is placed at MN as shown below.



जब दर्पण को नीचे दर्शाए अनुसार MN पर रखा जाता है, तो दी गई आकृति के सही दर्पण प्रतिबिंब का चयन कीजिए।

(1) 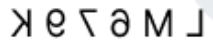 ✔
(2) 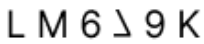
(3) 
(4) 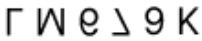

Q.32 What should come in place of the question mark (?) in the given series?

63 88 104 113 117 ?

दी गई श्रृंखला में प्रश्न-चिन्ह (?) के स्थान पर क्या आना चाहिए?

63 88 104 113 117 ?

(1) 115
(2) 114
(3) 116
(4) **118 ✔**

QuickSarkari.com | WhatsApp Channel | Telegram: t.me/quick_sarkari

Q.33 Which two numbers and which two signs should be interchanged to balance the following equation?
15 × 6 + 2 ÷ 3 − 18 = 25

निम्नलिखित समीकरण को संतुलित करने के लिए किन दो संख्याओं और दो चिह्नों को परस्पर बदलना होगा? 15 × 6 + 2 ÷ 3 − 18 = 25

(1) 6 and 18, − and + / 6 और 18, − और +

(2) 6 and 15, × and + / 6 और 15, × और +

(3) 2 and 6, − and + / 2 और 6, − और +

(4) 2 and 15, − and + / 2 और 15, − और + ✔

Q.34 In the following number pairs, the second number is obtained by performing certain mathematical operations on the first number. With which numbers should X and Y be replaced so that the pattern followed by the two numbers on the left side of :: is the same as the pattern followed by the two numbers on the right side of ::?
(NOTE: Operations should be performed on the whole numbers, without breaking down the numbers into their constituent digits. E.g. 13 – Operations on 13 such as adding/subtracting/multiplying etc. to 13 can be performed. Breaking down 13 into 1 and 3 and then performing mathematical operations on 1 and 3 is not allowed.)
X : 30 :: 20 : Y410

निम्नलिखित संख्या युग्मों में, पहली संख्या पर कुछ गणितीय संक्रियाएँ करके दूसरी संख्या प्राप्त की जाती है। X और Y को किस संख्या से प्रतिस्थापित किया जाना चाहिए ताकि :: के बाईं ओर की दो संख्याओं द्वारा अनुसरण किया जाने वाला पैटर्न :: के दाईं ओर की दो संख्याओं द्वारा अनुसरण किया जाने वाले पैटर्न के समान हो?
(नोट: संख्याओं को उनके घटक अंकों में तोड़े बिना, संक्रियाएँ पूर्ण संख्याओं पर की जानी चाहिए। उदाहरण के लिए 13 को लीजिए - 13 पर संक्रियाएँ जैसे कि 13 में जोड़ना/घटाना/गुणा करना आदि किया जा सकता है। 13 को 1 एवं 3 में तोड़ना और फिर 1 एवं 3 पर गणितीय संक्रियाएँ करने की अनुमति नहीं है।)
X : 30 :: 20 : Y410

(1) X = 15, Y = 45

(2) X = 5, Y = 45 ✔

(3) X = 10, Y = 35

(4) X = 10, Y = 45

Q.35 If '÷' and '–' are interchanged and '×' and '+' are interchanged, what will come in place of the question mark (?) in the following equation?
9 × 13 + 36 – 18 ÷ 6 = ?

यदि '÷' और '–' को आपस में बदल दिया जाए तथा '×' और '+' को आपस में बदल दिया जाए, तो निम्नलिखित समीकरण में प्रश्न-चिह्न (?) के स्थान पर क्या आएगा?
9 × 13 + 36 – 18 ÷ 6 = ?

(1) −106

(2) 36

(3) −76

(4) 29 ✔

Q.36 What should come in place of the question mark (?) in the given series?
34 41 52 65 82 ?
दी गई श्रृंखला में प्रश्न-चिन्ह (?) के स्थान पर क्या आना चाहिए?
34 41 52 65 82 ?

(1) 101 ✔
(2) 103
(3) 111
(4) 99

Q.37 In the following number pairs, the second number is obtained by performing certain mathematical operations on the first number. Select the set in which the numbers are related in the same way as are the numbers of the following sets.
(NOTE: Operations should be performed on the whole numbers, without breaking down the numbers into their constituent digits. E.g. 13 – Operations on 13 such as adding/subtracting/multiplying etc. to 13 can be performed. Breaking down 13 into 1 and 3 and then performing mathematical operations on 1 and 3 is not allowed.)
24, 96 33, 132
निम्नलिखित संख्या-युग्मों में, पहली संख्या पर कुछ गणितीय संक्रियाएँ करके दूसरी संख्या प्राप्त की जाती है। उस समुच्चय का चयन करें जिसमें संख्याएँ उसी तरह से संबंधित हैं जैसे कि निम्नलिखित समुच्चयों की संख्याएँ संबंधित हैं।
(नोट: संख्याओं को उनके घटक अंकों में तोड़े बिना, संक्रियाएँ पूर्ण संख्याओं पर की जानी चाहिए। उदाहरण के लिए 13 को लीजिए - 13 पर संक्रियाएँ जैसे कि 13 में जोड़ना/घटाना/गुणा करना आदि किया जा सकता है। 13 को 1 एवं 3 में तोड़ना और फिर 1 एवं 3 पर गणितीय संक्रियाएँ करने की अनुमति नहीं है।)
24, 96 33, 132

(1) 28, 122
(2) 56, 224 ✔
(3) 31, 128
(4) 48, 182

Quick Sarkari

Q.38 In the following number pairs, the second number is obtained by performing certain mathematical operations on the first number. With which numbers should X and Y be replaced so that the pattern followed by the two numbers on the left side of :: is the same as the pattern followed by the two numbers on the right side of ::?
(NOTE: Operations should be performed on the whole numbers, without breaking down the numbers into their constituent digits. E.g. 13 – Operations on 13 such as adding/subtracting/multiplying etc. to 13 can be performed. Breaking down 13 into 1 and 3 and then performing mathematical operations on 1 and 3 is not allowed.)
X : 108 :: 14 : Y
निम्नलिखित संख्या युग्मों में, पहली संख्या पर कुछ गणितीय संक्रियाएँ करके दूसरी संख्या प्राप्त की जाती है। X और Y को किस संख्या से प्रतिस्थापित किया जाना चाहिए ताकि :: के बाईं ओर की दो संख्याओं द्वारा अनुसरण किया जाने वाला पैटर्न :: के दाईं ओर की दो संख्याओं द्वारा अनुसरण किया जाने वाले पैटर्न के समान हो?
(नोट: संख्याओं को उनके घटक अंकों में तोड़े बिना, संक्रियाएँ पूर्ण संख्याओं पर की जानी चाहिए। उदाहरण के लिए 13 को लीजिए - 13 पर संक्रियाएँ जैसे कि 13 में जोड़ना/घटाना/गुणा करना आदि किया जा सकता है। 13 को 1 एवं 3 में तोड़ना और फिर 1 एवं 3 पर गणितीय संक्रियाएँ करने की अनुमति नहीं है।)
X : 108 :: 14 : Y

(1) X = 9, Y = 176
(2) X = 11, Y = 136
(3) **X = 9, Y = 168** ✔
(4) X = 12, Y = 196

Q.39 Select the option figure in which the given figure is embedded as its part (rotation is not allowed). 
उस विकल्प आकृति का चयन कीजिए, जिसमें दी गई आकृति उसके भाग के रूप में अंतर्निहित है। (घूमाने की अनुमति नहीं है)।

(1) 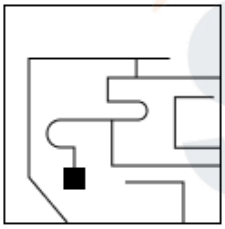

(2) 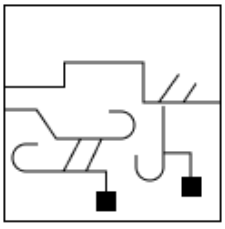

(3) 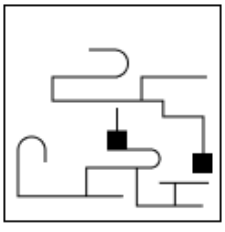
✔

(4) 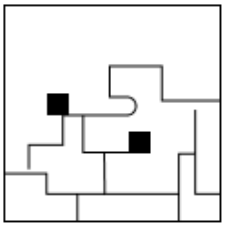

Q.40 Each digit in the number 49218576 is arranged in descending order from left to right. What will be the product of the second digit from the left and the third digit from the right in the number thus formed?
संख्या 49218576 में प्रत्येक अंक को बाएं से दाएं अवरोही क्रम में व्यवस्थित किया जाता है। इस प्रकार बनी संख्या में बाएं से दूसरे और दाएं से तीसरे अंक का गुणनफल कितना होगा?

(1) 28
(2) 40
(3) 16
(4) 32 ✔

General Awareness

Q.41 In December 2024, which Indian chess grandmaster won the World Rapid Chess Championship title by defeating Irene Sukandar of Indonesia?
दिसंबर 2024 में, किस भारतीय शतरंज ग्रैंडमास्टर ने इंडोनेशिया की आइरीन सुकंदर (Irene Sukandar) को हराकर वर्ल्ड रैपिड चेस चैंपियनशिप का खिताब जीता?

(1) Koneru Humpy / कोनेरू हम्पी (Koneru Humpy) ✔
(2) Gukesh Dommaraju / गुकेश डोम्माराजू (Gukesh Dommaraju)
(3) Pentala Harikrishna / पेंटाला हरिकृष्णा (Pentala Harikrishna)
(4) Rameshbabu Praggnanandhaa / रमेशबाबू प्रज्ञानन्द (Rameshbabu Praggnanandhaa)

Q.42 In March 2025, which organisation was selected to implement a new programme under PM VIKAS benefiting 31,600 candidates across the country?
मार्च 2025 में, देश भर में 31,600 उम्मीदवारों को लाभान्वित करने वाले PM VIKAS के अंतर्गत नए कार्यक्रम को लागू करने के लिए किस संगठन का चयन किया गया था?

(1) Delhi Sikh Gurdwara Management Committee / दिल्ली सिख गुरुद्वारा प्रबंधक कमेटी ✔
(2) National Minorities Development and Finance Corporation / राष्ट्रीय अल्पसंख्यक विकास एवं वित्त निगम
(3) National Commission for Minorities / राष्ट्रीय अल्पसंख्यक आयोग
(4) Ministry of Skill Development and Entrepreneurship / कौशल विकास एवं उद्यमिता मंत्रालय

Q.43 According to the Ministry of Finance, Government of India, what was the total deposit under the Pradhan Mantri Jan Dhan Yojana (PMJDY) in the country as of 14 August 2024?
भारत सरकार के वित्त मंत्रालय के अनुसार, 14 अगस्त 2024 तक देश में प्रधानमंत्री जन धन योजना (PMJDY) में कुल जमा राशि कितनी थी?

(1) ₹1,31,236 crore / ₹1,31,236 करोड़
(2) ₹4,31,236 crore / ₹4,31,236 करोड़
(3) ₹2,31,236 crore / ₹2,31,236 करोड़ ✔
(4) ₹3,31,236 crore / ₹3,31,236 करोड़

Q.44 In December 2024, what concern did the Supreme Court of India express regarding the youth?
दिसंबर 2024 में भारत के सर्वोच्च न्यायालय ने युवाओं के संबंध में क्या चिंता व्यक्त की?

(1) Rising incidents of cyberbullying / साइबर धमकी की बढ़ती घटनाएं
(2) Decline in literacy rate / साक्षरता दर में गिरावट
(3) Rising unemployment rate / बढ़ती बेरोजगारी दर
(4) Illicit drug trafficking and drug abuse / नशीली दवाओं का अवैध व्यापार और ड्रग्स का सेवन ✔

Q.45 The 10th India International Science Festival (IISF) was held from 30 November to 4 December 2024 at which of the following institutes?

30 नवंबर से 4 दिसंबर 2024 तक 10वां भारत अंतर्राष्ट्रीय विज्ञान महोत्सव (IISF) निम्नलिखित में से किस संस्थान में आयोजित किया गया था?

(1) IIT Roorkee / IIT रुड़की

(2) IIT Kanpur / IIT कानपुर

(3) **IIT Guwahati / IIT गुवाहाटी ✔**

(4) IIT Patna / IIT पटना

Q.46 In 1851, which of the following was started/formed to advocate the modernisation of Parsi social customs?

1851 में, पारसी सामाजिक रीति-रिवाजों के आधुनिकीकरण की वकालत करने के लिए निम्नलिखित में से किसकी शुरुआत की गई/किसका गठन किया गया था?

(1) **Rahnumai Mazdayasnan Sabha / रहनुमाई मज़्दायासन सभा ✔**

(2) Parsi Panchayat Reform / पारसी पंचायत सुधार

(3) Parsi Law Association / पारसी लॉ एसोसिएशन

(4) Zoroastrian Reform Movement / जोरास्ट्रियन सुधार आंदोलन

Q.47 In which year was the Industrial Development Bank of India (IDBI) established?

भारतीय औद्योगिक विकास बैंक (IDBI) की स्थापना किस वर्ष की गई थी?

(1) **1964 ✔**

(2) 1975

(3) 1960

(4) 1970

Q.48 Who founded the Bharatvarshiya Brahmo Samaj in 1866?

1866 में भारतवर्षीय ब्रह्म समाज की स्थापना किसने की?

(1) Raja Ram Mohan Roy / राजा राम मोहन राय

(2) **Keshab Chandra Sen / केशव चंदर सेन ✔**

(3) Ramchandra Paramhansa / रामचन्द्र परमहंस

(4) Swami Vivekananda / स्वामी विवेकानंद

Q.49 In which year did Mahatma Gandhi launch the Civil Disobedience Movement?

महात्मा गांधी ने सविनय अवज्ञा आंदोलन किस वर्ष शुरू किया था?

(1) 1932

(2) 1938

(3) **1930 ✔**

(4) 1936

Q.50 Which of the following persons killed two British officials in Poona in 1897?

निम्नलिखित में से किस व्यक्ति ने 1897 में पूना में दो ब्रिटिश अधिकारियों की हत्या की थी?

(1) Madan Lal Dhingra and V.D. Savarkar / मदन लाल ढींगरा और वीडी सावरकर

(2) **Damodar and Balkrishna Chapekar / दामोदर और बालकृष्ण चापेकर ✔**

(3) Khudiram Bose and Prafulla Chaki / खुदीराम बोस और प्रफुल्ल चाकी

(4) Rash Behari Bose and Barin Ghosh / रासबिहारी बोस और बारिन घोष

Q.51 In the context of Indian financial institutions, what is the full form of SIDBI?

भारतीय वित्तीय संस्थाओं के संदर्भ में SIDBI का पूर्ण रूप क्या है?

(1) State Investment and Development Bank of India / State Investment and Development Bank of India (स्टेट इन्वेस्टमेंट एंड डेवलपमेंट बैंक ऑफ इंडिया)

(2) Society for Industrial Development and Banking Initiatives / Society for Industrial Development and Banking Initiatives (सोसाइटी फॉर इंडस्ट्रियल डेवलपमेंट एंड बैंकिंग इनिशिएटिव्स)

(3) Small Industries Development Bank of India / Small Industries Development Bank of India (स्मॉल इंडस्ट्रीज डेवलपमेंट बैंक ऑफ इंडिया) ✔

(4) Small Infrastructure and Development Bank of India / Small Infrastructure and Development Bank of India (स्मॉल इंफ्रास्ट्रक्चर एंड डेवलपमेंट बैंक ऑफ इंडिया)

Q.52 Which of the following is the author of books such as 'Key to Health' and 'Ramanama'?

निम्नलिखित में से कौन 'की टू हेल्थ' और 'रामनामा' जैसी पुस्तकों के लेखक हैं?

(1) Ramchandra Shukla / रामचंद्र शुक्ला

(2) Mahatma Gandhi / महात्मा गांधी ✔

(3) Edward Jenner / एडवर्ड जेनर

(4) B.C. Roy / बी.सी. रॉय

Q.53 Which of the following languages is NOT one of the 'Classical Languages' recognised by the Government of India?

निम्नलिखित में से कौन-सी भाषा, भारत सरकार द्वारा मान्यता प्राप्त 'शास्त्रीय भाषाओं' में से एक नहीं है?

(1) Kannada / कन्नड़

(2) Bhojpuri / भोजपुरी ✔

(3) Sanskrit / संस्कृत

(4) Malayalam / मलयालम

Q.54 In the cost function $C = 5 + 4Q - 3Q^2 + 0.03Q^3$, what will be the value of the marginal cost?

लागत फलन $C = 5 + 4Q - 3Q^2 + 0.03Q^3$ में, सीमांत लागत का मान क्या होगा?

(1) $\mathbf{4 - 6Q + .09Q^2}$ **✔**

(2) $4 - 6Q + .09Q$

(3) $4 + 6Q - .09Q^2$

(4) $6Q + .09Q^2$

Q.55 What was the main feature of the multilingual version of the RailMadad complaint portal launched by Indian Railways in July 2024?

जुलाई 2024 में, भारतीय रेलवे द्वारा लॉन्च किए गए रेल-मदद (RailMadad) शिकायत पोर्टल के बहुभाषी संस्करण की मुख्य विशेषता क्या थी?

(1) It supports only English for ticket enquiries. / यह टिकट पूछताछ के लिए केवल अंग्रेजी को सपोर्ट करता है।

(2) It incorporates Bhashini's text and speech recognition technology. / इसमें भाषिणी की पाठ्य और वाक् पहचान तकनीक शामिल है। ✔

(3) It enables railway employees to communicate with their administrators in any language. / यह रेलवे कर्मचारियों को अपने प्रशासकों के साथ किसी भी भाषा में संवाद करने की सुविधा देता है।

(4) It resolves only complaints related to train delays. / यह केवल ट्रेन की देरी से संबंधित शिकायतों का समाधान करता है।

Q.56 In January 2025, which Indian player was ranked first in the men's Test bowling rankings announced by the International Cricket Council (ICC)?

जनवरी 2025 में, अंतर्राष्ट्रीय क्रिकेट परिषद (ICC) द्वारा घोषित पुरुष टेस्ट बॉलिंग रैंकिंग में कौन-सा भारतीय खिलाड़ी प्रथम स्थान पर रहा?

(1) Mohammed Siraj / मोहम्मद सिराज

(2) **Jasprit Bumrah / जसप्रीत बुमराह ✔**

(3) Arshdeep Singh / अर्शदीप सिंह

(4) Ravindra Jadeja / रवींद्र जडेजा

Q.57 Which important initiative did Gujarat implement during the visit of Prime Minister Shri Narendra Modi on International Women's Day in March 2025?

मार्च 2025 में अंतर्राष्ट्रीय महिला दिवस पर प्रधानमंत्री श्री नरेंद्र मोदी की यात्रा के दौरान गुजरात ने किस महत्वपूर्ण पहल को लागू किया?

(1) A new app was launched for the safety of women / महिलाओं की सुरक्षा के लिए नया ऐप लॉन्च किया गया

(2) A women's safety helpline was set up / महिला सुरक्षा हेल्पलाइन की स्थापना की गई

(3) **An all-women police security team was deployed / पूर्णतः महिला पुलिस सुरक्षा दल तैनात किया गया ✔**

(4) A new women's safety fund was announced / नए महिला सुरक्षा कोष की घोषणा की गई

Q.58 Reliance Jio, the leading company in the telecom sector in India, has become the world's largest mobile operator in terms of data traffic consumption, overtaking the telecom company of which of the following countries?

भारत में दूरसंचार क्षेत्र की अग्रणी कंपनी रिलायंस जियो ने डेटा ट्रैफिक खपत के मामले में निम्नलिखित में से किस देश की दूरसंचार कंपनी को पीछे छोड़ते हुए दुनिया की सबसे बड़ी मोबाइल ऑपरेटर कंपनी बन गई है?

(1) **China / चीन ✔**

(2) South Korea / दक्षिण कोरिया

(3) USA / अमेरिका

(4) Japan / जापान

Q.59 In national income accounts, capital goods are classified as _____.

राष्ट्रीय आय खातों में पूंजीगत वस्तुओं को _____ के रूप में वर्गीकृत किया जाता है।

(1) newly produced goods / नव उत्पादित वस्तुओं (newly produced goods)

(2) **final goods / अंतिम वस्तुओं (final goods) ✔**

(3) intermediate goods / मध्यवर्ती वस्तुओं (intermediate goods)

(4) inventory goods / इन्वेंटरी वस्तुओं (inventory goods)

Q.60 In November 2024, who became the youngest rated chess player ranked by the International Chess Federation?

नवंबर 2024 में, अंतर्राष्ट्रीय शतरंज महासंघ द्वारा रैंक किया गया सबसे कम आयु का रेटेड शतरंज खिलाड़ी कौन बना?

(1) Tejas Tiwari / तेजस तिवारी

(2) Arjun Erigaisi / अर्जुन एरिगैसी

(3) Kiran Kumar / किरण कुमार

(4) **Anish Sarkar / अनीश सरकार ✔**

Q.61 Which of the following rivers flows westwards and forms estuaries?

निम्नलिखित में से कौन-सी नदी पश्चिम की ओर बहती है और ज्वारनदमुख (estuaries) बनाती है?

(1) Tapi / तापी ✔

(2) Ganga / गंगा

(3) Kaveri / कावेरी

(4) Mahanadi / महानदी

Q.62 According to the 69th Amendment Act, _____ of the Indian Constitution, the Union Territory of Delhi shall be called the National Capital Territory of Delhi.

भारतीय संविधान के 69वें संशोधन अधिनियम, _____ के अनुसार, केंद्र शासित प्रदेश दिल्ली को राष्ट्रीय राजधानी क्षेत्र दिल्ली कहा जाएगा।

(1) 1978

(2) 1983

(3) 1956

(4) 1991 ✔

Q.63 Which of the following statements are true regarding DNA?

A. The full form of DNA is Deoxyribonucleic Acid.

B. The collection of all the DNA material in one complete set of chromosomes (including all the genes and other parts of DNA) in a cell is called the phenotype.

DNA के संबंध में निम्नलिखित में से कौन-से कथन सत्य हैं?

A. DNA का पूर्ण रूप Deoxyribonucleic Acid (डीऑक्सीराइबोन्यूक्लिक एसिड) है।

B. किसी कोशिका में गुणसूत्रों के एक पूर्ण समुच्चय (सभी जीन और DNA के अन्य भाग सहित) में सभी DNA पदार्थों के संग्रह को लक्षण प्ररूप (phenotype) कहा जाता है।

(1) Only A / केवल A ✔

(2) Neither A nor B / न तो A और न ही B

(3) Only B / केवल B

(4) Both A and B / A और B दोनों

Q.64 'Akbarnama', a compilation of three books that includes an account of the life of King Akbar and Mughal paintings, was written by which of the following personalities?

तीन पुस्तकों का संकलन 'अकबरनामा' जिसमें राजा अकबर के जीवन का वर्णन और मुगल चित्रकारी को सम्मिलित किया गया है, निम्नलिखित में से किस व्यक्तित्व द्वारा रचित है?

(1) Kautilya / कौटिल्य

(2) Abul Fazl / अबुल फ़ज़ल ✔

(3) Badur Fazr / बदुर फज़्र

(4) Ibn Battuta / इब्न बतूता

Q.65 Inside the nucleus, nucleic acids combine with histone proteins to form _____.

केंद्रक के भीतर न्यूक्लिक अम्ल, हिस्टोन प्रोटीन के साथ संयोजित होकर _____ बनाते हैं।

(1) chromatin / क्रोमैटिन (chromatin) ✔

(2) centrosome / तारककाय (centrosome)

(3) ribosome / राइबोसोम (ribosome)

(4) nucleolus / केंद्रिका (nucleolus)

Q.66 'Bali Yatra' is a major festival of which of the following states?

'बाली यात्रा' निम्नलिखित में से किस राज्य का प्रमुख त्योहार है?

(1) Odisha / ओडिशा ✔

(2) Rajasthan / राजस्थान

(3) Tripura / त्रिपुरा

(4) Punjab / पंजाब

Q.67 Due to which of the following reasons is the share of self-employed persons higher in the rural areas of India than in the urban areas?

निम्नलिखित में से किस कारण से, भारत के शहरी क्षेत्रों की तुलना में ग्रामीण क्षेत्रों में स्व-रोजगार वाले व्यक्तियों की हिस्सेदारी अधिक है?

(1) Limited availability of regular salaried jobs in rural areas / ग्रामीण क्षेत्रों में नियमित वेतन वाली नौकरियों की सीमित उपलब्धता

(2) Developed industrial enterprises in rural areas / ग्रामीण क्षेत्रों में विकसित औद्योगिक उद्यम

(3) High literacy rate in rural areas / ग्रामीण क्षेत्रों में उच्च साक्षरता दर

(4) Ownership of and participation in agriculture and animal husbandry / कृषि और पशुपालन में स्वामित्व और भागीदारी ✔

Q.68 What is the maximum number of ex-officio members from the Union Council of Ministers in NITI Aayog?

नीति आयोग में केंद्रीय मंत्रिपरिषद से पदेन सदस्यों की अधिकतम संख्या कितनी है?

(1) Six / छह

(2) Two / दो

(3) Four / चार ✔

(4) Eight / आठ

Q.69 Which of the following statements regarding the Calvin cycle is incorrect?

केल्विन चक्र के संबंध में निम्नलिखित में से कौन-सा कथन गलत है?

(1) Sugar is synthesised. / शर्करा संश्लेषित होती है।

(2) It is affected by whether it is the C_3 pathway or the C_4 pathway. / यह C_3 मार्ग या C_4 मार्ग होने पर प्रभावित होता है। ✔

(3) It takes place in three stages - carboxylation, reduction and regeneration. / यह तीन चरणों में होता है - कार्बोक्सिलीकरण, अपचयन और पुनर्जनन।

(4) It is found in all photosynthetic plants. / यह सभी प्रकाशसंश्लेषी पादपों में पाया जाता है।

Q.70 What is the function of chloroplasts in plant cells?

पादप कोशिकाओं में हरितलवक का क्या कार्य है?

(1) To synthesise lipids / लिपिड संश्लेषण करना

(2) To carry out cellular respiration / कोशिकीय श्वसन करना

(3) To synthesise proteins / प्रोटीन संश्लेषण करना

(4) To carry out photosynthesis / प्रकाश संश्लेषण करना ✔

Q.71 Which of the following Fundamental Duties mentions that a parent or guardian should provide opportunities for education to his child or ward between the age of 6 and 14 years?

निम्नलिखित में से किस मौलिक कर्तव्य में यह उल्लेख किया गया है कि माता-पिता या संरक्षक को अपने बच्चे या प्रतिपाल्य को 6 से 14 वर्ष की आयु के बीच शिक्षा के अवसर प्रदान करने चाहिए?

(1) Article 51A(d) / अनुच्छेद 51A(d)

(2) Article 51A(c) / अनुच्छेद 51A(c)

(3) Article 51A(k) / अनुच्छेद 51A(k) ✔

(4) Article 51A(e) / अनुच्छेद 51A(e)

Q.72 Which ancient Sanskrit text, best known as a legal document, was compiled between the second century BCE and the second century CE?

कानूनी दस्तावेज के रूप में सर्वाधिक प्रसिद्ध वह प्राचीन संस्कृत ग्रंथ कौन-सा है, जिसे दूसरी शताब्दी ईसा पूर्व और दूसरी शताब्दी ईस्वी के बीच संकलित किया गया था?

(1) Samaveda / सामवेद

(2) Manusmriti / मनुस्मृति ✔

(3) Atharvaveda / अथर्ववेद

(4) Rigveda / ऋग्वेद

Q.73 What is the outermost range of the Himalayas called?

हिमालय की बाह्यतम पर्वतमाला को क्या कहा जाता है?

(1) Himadri / हिमाद्रि

(2) Shiwalik / शिवालिक ✔

(3) Mahabharat / महाभारत

(4) Himachal / हिमाचल

Q.74 Which of the following courts is the highest court for criminal cases in a district and tries the accused sent by the Magistrate for serious offences?

निम्नलिखित में से कौन-सा न्यायालय, किसी जिले में आपराधिक मामलों के लिए सर्वोच्च होता है और गंभीर अपराधों के लिए मजिस्ट्रेट द्वारा भेजे गए अभियुक्तों पर मुकदमा चलाता है?

(1) Sessions Court / सत्र न्यायालय ✔

(2) High Court / उच्च न्यायालय

(3) District Judge Court / जिला न्यायाधीश न्यायालय

(4) Family Court / पारिवारिक न्यायालय

Q.75 Which of the following is the main language of Sikkim?

सिक्किम की प्रमुख भाषा निम्नलिखित में से कौन-सी है?

(1) Nishi / निशी

(2) Ao / आओ

(3) Nepali / नेपाली ✔

(4) Hindi / हिंदी

Q.76 In which of the following parts of India are thorn forests and scrubs mostly found?
कांटेदार वन और झाड़ियां भारत के निम्नलिखित में से किस भाग में अधिकांशतः पाई जाती हैं?

(1) In the Western Ghats and the Andaman Islands / पश्चिमी घाट और अंडमान द्वीप समूह में
(2) In the high-altitude areas of the Himalayas / हिमालय के उच्च ऊंचाई वाले क्षेत्रों में
(3) In the Himalayan foothills and North-East India / हिमालय की तलहटी और पूर्वोत्तर भारत में
(4) **In north-western India / उत्तर-पश्चिमी भारत में ✔**

Q.77 According to the Periodic Labour Force Survey (PLFS), for the period July 2023 to June 2024, which of the following Indian States/Union Territories recorded the highest unemployment rate among people aged 15 to 29 years?
आवधिक श्रम बल सर्वेक्षण (PLFS) के अनुसार, जुलाई 2023 से जून 2024 की अवधि के लिए, निम्नलिखित में से किस भारतीय राज्य/केंद्र शासित प्रदेश ने 15 से 29 वर्ष की आयु के लोगों में सर्वाधिक बेरोजगारी दर दर्ज की?

(1) Haryana / हरियाणा
(2) **Lakshadweep / लक्षद्वीप ✔**
(3) Andaman and Nicobar Islands / अंडमान और निकोबार द्वीप समूह
(4) Sikkim / सिक्किम

Q.78 According to which Article of the Constitution of India shall all proceedings in the Supreme Court and in every High Court be in the English language?
भारत के संविधान के किस अनुच्छेद के अनुसार, सर्वोच्च न्यायालय और प्रत्येक उच्च न्यायालय में सभी कार्यवाही अंग्रेजी भाषा में होगी?

(1) Article 343 / अनुच्छेद 343
(2) Article 349 / अनुच्छेद 349
(3) **Article 348(1)(a) / अनुच्छेद 348(1)(a) ✔**
(4) Article 352 / अनुच्छेद 352

Q.79 In the alveoli of the human respiratory system, the binding of O_2 with haemoglobin takes place due to _____.
मानव श्वसन तंत्र की कूपिका (alveoli) में, हीमोग्लोबिन के साथ O_2 का बंधन _____ के कारण होता है।

(1) **the partial pressure of O_2 in the alveoli / कूपिका में O_2 के आंशिक दाब ✔**
(2) the concentration of CO_2 in the alveoli / कूपिका में CO_2 की सांद्रता
(3) the acidity in the alveoli / कूपिका में अम्लीयता
(4) the temperature in the alveoli / कूपिका में तापमान

Q.80 By which Amendment Act was the duty to provide opportunities for education to children aged 6 to 14 years added?
6 से 14 वर्ष की आयु के बच्चों को शिक्षा के अवसर प्रदान करने का कर्तव्य किस संशोधन अधिनियम द्वारा जोड़ा गया?

(1) 74th Amendment / 74वें संशोधन
(2) 42nd Amendment / 42वें संशोधन
(3) **86th Amendment / 86वें संशोधन ✔**
(4) 44th Amendment / 44वें संशोधन

Arithmetical and Numerical Ability

Q.81 What is the smallest number that should be added to 14864 so that the sum is completely divisible by 32?

14864 में कौन-सी सबसे छोटी संख्या जोड़ी जाए कि योगफल, 32 से पूर्णतः विभाज्य हो जाए?

(1) 21
(2) 15
(3) 14
(4) **16** ✔

Q.82 In a test, out of a maximum of 120 marks, B got 66 marks while A got 80 marks. A's marks were approximately what percentage of B's marks?

एक टेस्ट में, अधिकतम 120 अंकों में से B को 66 अंक मिले जबकि A को 80 अंक मिले। B के अंकों का लगभग कितना प्रतिशत A के अंक थे?

(1) 120%
(2) **121.21%** ✔
(3) 82.5%
(4) 66.67%

Q.83 If the simple interest on a certain sum for 10 years at the rate of 6% per annum is ₹735, then find the sum (in ₹).

यदि किसी निश्चित धनराशि पर, 6% वार्षिक दर से 10 वर्ष का साधारण ब्याज ₹735 है, तो वह धनराशि (₹ में) ज्ञात कीजिए।

(1) 1,228
(2) **1,225** ✔
(3) 1,224
(4) 1,222

Q.84 In what ratio should a grocer mix two varieties of rice costing ₹208 and ₹273 per kg, respectively, so as to get a mixture of rice worth ₹257 per kg?

एक पंसारी को क्रमशः ₹208 और ₹273 प्रति kg मूल्य वाले दो प्रकार के चावल को किस अनुपात में मिश्रित करना चाहिए, ताकि ₹257 प्रति kg मूल्य वाला चावल का मिश्रण प्राप्त हो?

(1) 13 : 27
(2) 9 : 25
(3) **16 : 49** ✔
(4) 16 : 39

Q.85 A car worth ₹10,00,000 is depreciating at the rate of 20% per annum. In how many years will its value reduce to ₹5,12,000?

₹10,00,000 मूल्य वाली एक कार का 20% वार्षिक दर से मूल्यह्रास हो रहा है। कितने वर्षों में इसका मूल्य घटकर ₹5,12,000 हो जाएगा?

(1) 4
(2) 2
(3) **3** ✔
(4) 6

Q.86 A 5-litre mixture of milk and water contains 20% water, and in another 8-litre mixture of water and milk, there are 3 litres of milk for every litre of water. The two mixtures are mixed together. Find the percentage of milk in the new mixture.
(Rounded off to two decimal places)
5 लीटर दूध और जल के मिश्रण में 20% जल है, तथा 8 लीटर मात्रा वाले जल और दूध के दूसरे मिश्रण में प्रत्येक लीटर जल के लिए, 3 लीटर दूध है। दोनों मिश्रण को मिलाया गया है। नये मिश्रण में दूध का प्रतिशत ज्ञात कीजिए।
(दशमलव के दो स्थान तक पूर्णांकित करें)

(1) 72.29%
(2) 78.92%
(3) 74.69%
(4) 76.92% ✔

Q.87 If the simple interest on a certain sum for 2 years at the rate of 8% per annum is ₹852, then find the sum (in ₹).
यदि किसी निश्चित धनराशि पर 8% वार्षिक दर से 2 वर्ष का साधारण ब्याज ₹852 है, तो वह धनराशि (₹ में) ज्ञात कीजिए।

(1) 5,323
(2) 5,324
(3) 5,325 ✔
(4) 5,327

Q.88 The present population of a town is 12,500. It increases by 65% and 23% in two successive years, but decreases by 68% in the third year. What is the population of the town at the end of the third year?
एक कस्बे की वर्तमान जनसंख्या 12,500 है। दो क्रमिक वर्षों में इसमें 65% और 23% की वृद्धिहोती है, लेकिन तीसरे वर्ष में 68% की कमी होती है। तीसरे वर्ष के अंत में कस्बे की जनसंख्या कितनी है?

(1) 8119
(2) 8118 ✔
(3) 8114
(4) 8115

Q.89 Find the value of 3 + (−60) ÷ (−12) + (−4) × 4.
3 + (−60) ÷ (−12) + (−4) × 4 का मान ज्ञात कीजिए।

(1) −10
(2) −8 ✔
(3) −11
(4) −7

Q.90 The present population of a town is 17,120. It increases by 10% and 25% in two successive years, but decreases by 40% in the third year. What is the population of the town at the end of the third year?
एक कस्बे की वर्तमान जनसंख्या 17,120 है। दो क्रमिक वर्षों में इसमें 10% और 25% की वृद्धिहोती है, लेकिन तीसरे वर्ष में 40% की कमी होती है। तीसरे वर्ष के अंत में कस्बे की जनसंख्या कितनी है?

(1) 14,126
(2) 14,128
(3) 14,122
(4) 14,124 ✔

QuickSarkari.com | WhatsApp Channel | Telegram: t.me/quick_sarkari

Q.91 The table below shows the number of persons who responded to a survey regarding their favourite genre of music. Study the given information and answer the following question.
Age 15-20 21-30 31+ Classical 6 4 7 Pop 7 5 5 Rock 6 12 14 Jazz 1 4 11 Blues 2 3 15 Hip-hop 9 3 4 Ambient 4 4 4 Total 35 35 60 What percentage of the respondents aged below 31 years reported that blues is their favourite music genre?
(Round off the answer to one decimal place)
नीचे दी गई तालिका उन व्यक्तियों की संख्या दर्शाती है जिन्होंने संगीत की अपनी पसंदीदा शैली के संबंध में एक सर्वेक्षण पर प्रतिक्रिया दी। दी गई जानकारी का अध्ययन कीजिए और निम्नलिखित प्रश्न का उत्तर दीजिए।
आयु 15-20 21-30 31+ क्लासिकल 6 4 7 पॉप 7 5 5 रॉक 6 12 14 जैज़ 1 4 11 ब्लूज़ 2 3 15 हिप-हॉप 9 3 4 एंबिएंट 4 4 4 कुल 35 35 60 31 वर्ष से कम आयु के कितने प्रतिशत प्रतिक्रिया दाताओं ने बताया कि ब्लूज़ उनकी पसंदीदा संगीत शैली है?
(उत्तर को दशमलव के एक स्थान तक पूर्णांकित कीजिए)

(1) 8.1%
(2) 9.1%
(3) 6.1%
(4) 7.1% ✔

Q.92 30 students of a class took an exam. The average score of 12 students is 72, and the average score of the remaining students is 68. What is the average score of the class?
एक कक्षा के 30 विद्यार्थियों ने एक परीक्षा दी। 12 विद्यार्थियों का औसत स्कोर 72 है, और शेष विद्यार्थियों का औसत स्कोर 68 है। कक्षा का औसत स्कोर कितना है?

(1) 70.6
(2) 68.6
(3) 69.6 ✔
(4) 67.6

Q.93 A person incurs a loss of 21% on selling an article for ₹395. If he sells it for ₹330, what will be his profit/loss percentage?
एक व्यक्ति को एक वस्तु ₹395 में बेचने पर 21% की हानि होती है। यदि वह इसे ₹330 में बेचता है, तो उसका लाभ/हानि प्रतिशत कितना होगा?

(1) Loss, 34% / हानि, 34% ✔
(2) Loss, 37% / हानि, 37%
(3) Profit, 30% / लाभ, 30%
(4) Profit, 37% / लाभ, 37%

Q.94 If the interest on a sum of ₹y for 2 years at the rate of 5% per annum, compounded annually, is ₹205, then the total amount payable at the end of the two-year period will be _____.
यदि ₹y की राशि पर वार्षिक रूप से संयोजित होने वाले 5% वार्षिक दर से 2 वर्ष का ब्याज ₹205 है, तो दो वर्ष की अवधि के अंत में देय कुल राशि _____ होगी।

(1) ₹1,715
(2) ₹2,158
(3) ₹2,205 ✔
(4) ₹2,069

Q.95 In what ratio should a grocer mix two varieties of rice costing ₹203 and ₹275 per kg, respectively, so as to get a mixture of rice worth ₹222 per kg?

एक पंसारी को क्रमशः ₹203 और ₹275 प्रति kg मूल्य वाले दो प्रकार के चावलों को किस अनुपात में मिश्रित करना चाहिए, ताकि ₹222 प्रति kg मूल्य वाला चावल का मिश्रण प्राप्त हो?

(1) 53 : 19 ✔

(2) 55 : 20

(3) 43 : 19

(4) 63 : 24

Q.96 Find the HCF of 5^3, 5^7, 5^9 and 5^{11} .

5^3, 5^7, 5^9 और 5^{11} का महत्तम समापवर्तक ज्ञात कीजिए।

(1) 125 ✔

(2) 5^{11}

(3) 5

(4) 25

Q.97 If $x^2 = \{16 \times (64 \div 4) \times 49 \times 1/7 \div 7\}$, then find the value of x.

जब $x^2 = \{16 \times (64 \div 4) \times 49 \times 1/7 \div 7\}$ है, तो x का मान ज्ञात कीजिए।

(1) 42

(2) 21

(3) 35

(4) 16 ✔

QuickSarkari.com | WhatsApp Channel | Telegram: t.me/quick_sarkari

Q.98 Study the given graph and answer the following question.
The bar graph shows the number of students in different classes of a school.

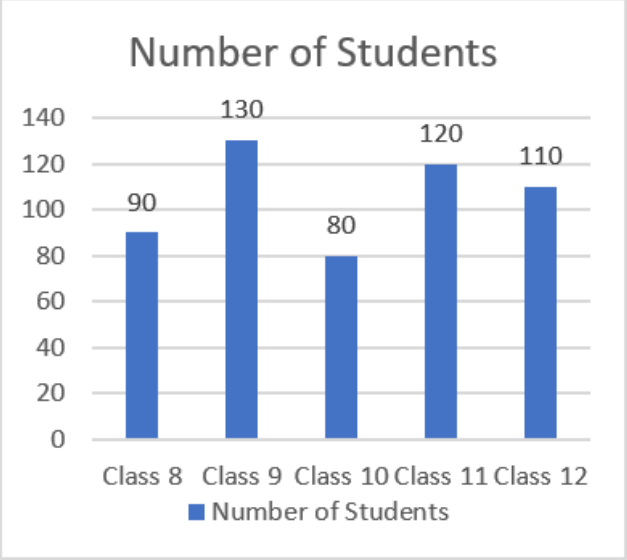

Reference- number of students - विद्यार्थियों की संख्या, class - कक्षा What is the average number of students per class?

दिए गए ग्राफ का अध्ययन करें और निम्नलिखित प्रश्न का उत्तर दें।
बार ग्राफ में एक स्कूल की विभिन्न कक्षाओं में विद्यार्थियों की संख्या को दर्शाया गया है।
संदर्भ- number of students - विद्यार्थियों की संख्या, class - कक्षाकक्षा में विद्यार्थियों की औसत संख्या कितनी है?

(1) 98
(2) 115
(3) **106** ✔
(4) 111

Q.99 Ram's income is 15% more than Suresh's income. Suresh's income is 20% less than Mayank's income. By what percentage (rounded off to the nearest integer) is Mayank's income more than Ram's income?
राम की आय, सुरेश की आय से 15% अधिक है। सुरेश की आय, मयंक की आय से 20% कम है। मयंक की आय, राम की आय से कितने (निकटतम पूर्णांक तक पूर्णांकित) प्रतिशत अधिक है?

(1) 5%
(2) **9%** ✔
(3) 11%
(4) 7%

Q.100 A person incurs a loss of 36% on selling an article for ₹112. If he sells it for ₹182, what will be his profit/loss percentage?
एक व्यक्ति को एक वस्तु ₹112 में बेचने पर 36% की हानि होती है। यदि वह उसे ₹182 में बेचता है, तो उसका लाभ/हानि प्रतिशत कितना होगा?

(1) Profit, 6% / लाभ, 6%
(2) **Profit, 4% / लाभ, 4%** ✔
(3) Loss, 6% / हानि, 6%
(4) Loss, 1% / हानि, 1%

Q.101 A and B started a business by investing ₹3,200 and ₹2,400, respectively. After 8 months, C also joined them by investing ₹5,600. If the total profit at the end of the year is ₹3,100, what will be C's share (in ₹) in the profit?

A और B ने क्रमशः ₹3,200 और ₹2,400 का निवेश करके एक व्यवसाय शुरू किया। 8 महीने बाद, C भी ₹5,600 का निवेश करके उनके साथ शामिल हो गया। यदि वर्ष के अंत में कुल ₹3,100 का लाभ होता है, तो लाभ में C का हिस्सा (₹ में) कितना होगा?

(1) 776
(2) 771
(3) 773
(4) 775 ✔

Q.102 A person walks to a viewpoint and returns to the starting point by his car, maintaining a constant speed, and thus takes a total time of 4 hours 15 minutes. If he had gone both ways by car, he would have taken 2 hours less. How much time will he take to walk both ways at the same speed?

एक व्यक्ति एक व्यूपॉइंट तक पैदल जाता है और अपनी कार से नियत चाल बनाए रखते हुए प्रारंभिक बिंदु पर लौट आता है और इस प्रकार उसे कुल 4 घंटे 15 मिनट का समय लगता है। यदि वह दोनों तरफ कार से जाता, तो उसे 2 घंटे कम समय लगता। समान चाल से दोनों तरफ की पैदल यात्रा में उसे कितना समय लगेगा?

(1) 6 hours 45 minutes / 6 घंटे 45 मिनट
(2) 7 hours 30 minutes / 7 घंटे 30 मिनट
(3) 6 hours 15 minutes / 6 घंटे 15 मिनट ✔
(4) 5 hours 15 minutes / 5 घंटे 15 मिनट

Q.103 In a clearance sale of electronic goods, an article whose marked price was ₹12,050 is now sold for ₹10,604, and the discount on the article is d%. Find the value of d.

इलेक्ट्रॉनिक वस्तुओं की एक क्लीयरेंस सेल में, एक वस्तु जिसका अंकित मूल्य ₹12,050 था, वह अब ₹10,604 में बेची जाती है, तथा वस्तु पर d% छूट प्रतिशत है। d का मान ज्ञात कीजिए।

(1) 14%
(2) 13%
(3) 12% ✔
(4) 11%

Q.104 If three pipes M, N and O alone can fill a tank in 30 hours, 20 hours and 25 hours, respectively, then find the time (in hours) taken to fill the tank completely when all three pipes are opened together.

यदि तीन पाइप M, N और O अकेले टैंक को क्रमशः 30 घंटे, 20 घंटे और 25 घंटे में भर सकते हैं, तो जब तीनों पाइप एक साथ खोले जाते हैं, तो टैंक को पूरी तरह से भरने में लगने वाला समय (घंटे में) ज्ञात कीजिए।

(1) 8 4/37 ✔
(2) 6 7/37
(3) 7 8/35
(4) 8 5/33

Q.105 Find the volume (in m^3) of a cube with an edge of 44 m.

44 m कोर वाले एक घन का आयतन (m^3 में) ज्ञात कीजिए।

(1) 85,229
(2) 85,184 ✔
(3) 85,336
(4) 85,166

Q.106 The sides of a cuboidal hall are in the ratio 3 : 4 : 5 and its total surface area is 846 m^2. Find the length of the longest rod that can be placed in the hall.

एक घनाभाकार हॉल की भुजाओं का अनुपात 3 : 4 : 5 है तथा इसका संपूर्ण पृष्ठीय क्षेत्रफल 846 m^2 है। हॉल में रखी जा सकने वाली सबसे लंबी छड़ की लंबाई ज्ञात कीजिए।

(1) 17√3 m
(2) 16√2 m
(3) 14√3 m
(4) 15√2 m ✔

Q.107 A person walks to a viewpoint and returns to the starting point by his car, maintaining a constant speed, and thus takes a total time of 7 hours 45 minutes. If he had gone both ways by car, he would have taken 4 hours less. How much time will he take to walk both ways at the same speed?

एक व्यक्ति एक व्यूपॉइंट तक पैदल जाता है और अपनी कार से नियत चाल बनाए रखते हुए प्रारंभिक बिंदु पर लौट आता है और इस प्रकार उसे कुल 7 घंटे 45 मिनट का समय लगता है। यदि वह दोनों तरफ कार से जाता, तो उसे 4 घंटे कम समय लगता। समान चाल से दोनों तरफ की पैदल यात्रा में उसे कितना समय लगेगा?

(1) 12 hours 15 minutes / 12 घंटे 15 मिनट
(2) 10 hours 45 minutes / 10 घंटे 45 मिनट
(3) 11 hours 45 minutes / 11 घंटे 45 मिनट ✔
(4) 11 hours 30 minutes / 11 घंटे 30 मिनट

Q.108 A typist takes 40 minutes to type 10 pages. How many pages can he type in 68 minutes?

एक टाइपिस्ट को 10 पेज टाइप करने में 40 मिनट लगते हैं। वह 68 मिनट में कितने पेज टाइप कर सकता है?

(1) 19
(2) 18
(3) 17 ✔
(4) 16

Q.109 Find the mean proportional between 162 and 18.

162 और 18 का माध्यानुपाती ज्ञात कीजिए।

(1) 54 ✔
(2) 56
(3) 55
(4) 51

Q.110 Find the cost (in ₹) of polishing the curved surface of a wooden cylinder of diameter 70 m and height 9 m at the rate of ₹12 per m^2. (Use π = 22/7)

70 m व्यास और 9 m ऊंचाई वाले लकड़ी के एक बेलन के वक्र पृष्ठ को ₹12 प्रति m^2 की दर से पॉलिश करने की लागत (₹ में) ज्ञात कीजिए। (π = 22/7 का उपयोग कीजिए)

(1) 27,360
(2) 23,760 ✔
(3) 26,730
(4) 26,370

QuickSarkari.com | WhatsApp Channel | Telegram: t.me/quick_sarkari

Q.111 A motorist covers a distance of 30 km in 49 minutes by travelling at a speed of x km/hr for the first 16 minutes, then at a speed of 2x km/hr for the next 23 minutes, and the rest of the journey again at a speed of x km/hr. Find the value of x.

एक मोटर चालक पहले 16 मिनट तक x km/hr की चाल से चलकर, फिर अगले 23 मिनट तक 2x km/hr की चाल से चलकर और शेष यात्रा पुनः x km/hr की चाल से चलकर, 49 मिनट में 30 km की दूरी तय करता है। x का मान ज्ञात कीजिए।

(1) 22
(2) **25 ✔**
(3) 30
(4) 28

Q.112 A and B can each complete a piece of work in 13 days. They started working together, but after 2 days, B had to leave the work, and A completed the remaining work alone. The whole work was completed in _____ days.

A और B में से प्रत्येक एक कार्य को 13 दिन में पूरा कर सकता है। उन्होंने एक साथ कार्य करना शुरू किया, लेकिन 2 दिन बाद, B को कार्य छोड़ना पड़ा, और A ने शेष कार्य अकेले पूरा किया। पूरा कार्य_____ दिन में पूर्ण हुआ।

(1) **11 ✔**
(2) 9
(3) 10
(4) 12

Q.113 Find the mean proportional between 84 and 21.

84 और 21 का माध्यानुपाती ज्ञात कीजिए।

(1) **42 ✔**
(2) 40
(3) 44
(4) 39

Q.114 A retailer offers a discount of 3% on the marked price of an article. If the cost price of the article is ₹776 and the retailer wants to earn a profit of 54%, what should be the marked price (in ₹)?

एक खुदरा विक्रेता किसी वस्तु के अंकित मूल्य पर 3% की छूट देता है। यदि वस्तु का क्रय मूल्य ₹776 है और खुदरा विक्रेता 54% का लाभ अर्जित करना चाहता है, तो उसे अंकित मूल्य (₹ में) कितना रखना होगा?

(1) **1,232 ✔**
(2) 1,235
(3) 1,234
(4) 1,233

Q.115 A scheme such as 'Buy 9, Get 1 Free' on identical articles with the same MRP gives a discount of _____%.

समान MRP वाली एक जैसी वस्तुओं पर '9 की खरीद पर 1 मुफ़्त पाएं' जैसी स्कीम में _____% की छूट मिलती है।

(1) 11
(2) 11.11
(3) 12.11
(4) **10 ✔**

Q.116 The sides of a parallelogram are 15 cm and 18 cm long. The length of one of its diagonals is 21 cm. Find the area (in cm^2) of the parallelogram.

एक समांतर चतुर्भुज की भुजाएँ 15 cm और लंबाई 18 cm है। विकर्णों में से एक विकर्ण की लंबाई 21 cm है।
समांतर चतुर्भुज का क्षेत्रफल (cm^2 में) ज्ञात कीजिए।

(1) 96√3
(2) 120√3
(3) **108√6 ✔**
(4) 72√6

Q.117 Pipe X can fill a tank in 18 hours, while pipe Y alone can fill it in 15 hours, and pipe Z can empty the completely filled tank in 24 hours. If all the pipes are opened together, how much time (in hours) will it take to fill the tank completely?

पाइप X एक टंकी को 18 घंटे में भर सकता है जबकि पाइप Y अकेले इसे 15 घंटे में भर सकता है और पाइप Z पूरी तरह से भरी हुई टंकी को 24 घंटे में खाली कर सकता है। यदि सभी पाइप एक साथ खोल दिए जाएँ, तो टंकी को पूरी तरह से भरने में कितना समय (घंटे में) लगेगा?

(1) 13 12/29
(2) 11 12/29
(3) 13 11/27
(4) **12 12/29 ✔**

Q.118 Train P, moving at a speed of 85 km/hr, completely crosses a 367 m long train Q, moving at a speed of 66 km/hr in the same direction on parallel tracks, in 1.5 minutes. How much time (in seconds) will P take to completely cross a 387 m long train R moving at a speed of 77 km/hr in the opposite direction?

85 km/hr की चाल से गतिमान ट्रेन P, समांतर पटरियों पर समान दिशा में 66 km/hr की चाल से गतिमान 367 m लंबी ट्रेन Q को 1.5 मिनट में पूरी तरह से पार कर लेती है। P को विपरीत दिशा में 77 km/hr की चाल से गतिमान 387 m लंबी ट्रेन R को पूरी तरह से पार करने में कितना समय (सेकंड में) लगेगा?

(1) 10
(2) **11 ✔**
(3) 18
(4) 16

Q.119 A started a business with a capital of ₹2,87,000. After 4 months, B joined him in the business with a certain capital. At the end of one year of A's business, the profit was shared in the ratio 4 : 1.
How much (in ₹) had B invested?

A ने ₹2,87,000 की पूंजी से एक व्यवसाय शुरू किया। 4 महीने बाद, B एक निश्चित पूंजी के साथ उसके साथ व्यवसाय में सम्मिलित हो गया। A के व्यवसाय के एक वर्ष के अंत में, लाभ 4 : 1 के अनुपात में साझा किया गया। B ने कितना (₹ में) निवेश किया था?

(1) 1,06,400
(2) 1,07,300
(3) **1,07,625 ✔**
(4) 1,16,900

Q.120 The selling price of 35 books is equal to the cost price of 28 books. Find the loss or profit percentage.

35 पुस्तकों का विक्रय मूल्य, 28 पुस्तकों के क्रय मूल्य के बराबर है। हानि या लाभ प्रतिशत ज्ञात कीजिए।

(1) 25% loss / 25% हानि
(2) **20% loss / 20% हानि ✔**
(3) 25% profit / 25% लाभ
(4) 20% profit / 20% लाभ

English Language and Comprehension

Q.121 Select the most appropriate option that rectifies the grammatical error(s) in the given sentence.
The professor is known with his eccentric teaching style and vivid examples.

(1) The professor is known by his eccentric teaching style and vivid examples.

(2) The professor is known to his eccentric teaching style and vivid examples.

(3) The professor is known for his eccentric teaching style and vivid examples. ✔

(4) The professor is known of his eccentric teaching style and vivid examples.

Q.122 Sentences of a paragraph are given below in jumbled order. Arrange the sentences in the correct order to form a meaningful and coherent paragraph.
1. The example he gave stated the ancestors of giraffes might have adapted to a shortage of food from short trees by stretching their necks to reach higher branches.
2. He was a French mathematician who believed that organisms changed over time by adapting to the environments of their geographical locations.
3. Scientists who studied adaptation prior to the development of evolutionary theory included Georges Louis Leclerc, Comte de Buffon.
4. However, it was Darwin's concept of natural selection, wherein favourable traits like a long neck in giraffes survived not because of acquired skills, but because only giraffes that had long enough necks to feed themselves survived long enough to reproduce.
5. Another French thinker, Jean Baptiste Lamarck, proposed that animals could adapt, pass on their adaptations to their offspring, and therefore evolve.
6. In Lamarck's thinking, the offspring of a giraffe that stretched its neck would then inherit a slightly longer neck.
7. Lamarck theorised that behaviors acquired in a giraffe's lifetime would affect its offspring.

(1) 3, 6, 5, 2, 7, 4, 1

(2) 6, 7, 4, 3, 2, 1, 5

(3) 3, 2, 5, 1, 6, 7, 4 ✔

(4) 4, 6, 1, 2, 7, 3, 5

Q.123 Select the most appropriate option to fill in the blanks.
No action or instruction _____ be permanent which _____ not based on reason and morality.

(1) shall; are

(2) can; were

(3) is; was

(4) can; is ✔

Q.124 Select the most appropriate adverb to fill in the blank.
After a long day, Emma _____ chose to relax and read a book instead of starting another project.

(1) blindly

(2) enthusiastically

(3) sensibly ✔

(4) gracefully

Q.125 Select the most appropriate adjective to fill in the blank.
The historical documentary was criticised for being _____, as it presented a narrow and somewhat biased view of the events without addressing broader contexts.

(1) selective ✔
(2) selective more
(3) more selective
(4) most selective

Q.126 Select the most appropriate option that rectifies the highlighted segment in the given sentence.
The journalist was broken the story before it could be officially confirmed.

(1) broke
(2) have broken
(3) was breaking
(4) had broken ✔

Q.127 Select the most appropriate option to fill in the blank.
A company's success depends largely _____ the dedication and teamwork of its employees.

(1) in
(2) on ✔
(3) with
(4) by

Q.128 Sentences of a paragraph are given below in jumbled order. Arrange the sentences in the correct order to form a meaningful and coherent paragraph.
A. The invention of the wheel marked a turning point in human history.
B. Over time, wheels evolved to support various technologies.
C. Early wheels were made of wood and used in carts.
D. It revolutionised transport and machinery.
E. Today, they are crucial in automobiles.

(1) ADCBE ✔
(2) CABED
(3) BDCAE
(4) ABEDC

Q.129 Select the most appropriate article to fill in the blank. If no article is needed, select 'No article required'.
Ramya kept __ pen on her table.

(1) the
(2) No article required
(3) a ✔
(4) an

Q.130 Select the most appropriate meaning of the given proverb.
An idle brain is devil's workshop

(1) If you've nothing to do, you'll likely think of mischief ✔
(2) An idle person thinks of his pending work
(3) Devils disturb the active people
(4) Idle person likes devils

Q.131 Select the most appropriate adjective to fill in the blank.
Mr. Aravind, the scientist, conducted _____ research in the field of biochemistry.

(1) charmed
(2) groundbreaking ✔
(3) carefree
(4) large

Q.132 Select the most appropriate article to fill in the blank. Select 'No article required' if no article is required in the blank.
_____ red car standing in the parking area belongs to my cousin, Neeta.

(1) An
(2) No article required
(3) A
(4) The ✔

Q.133 Select the most appropriate option to fill in the blank.
The _____ storm, which raged throughout the night, left behind a trail of uprooted trees and damaged homes.

(1) sombre
(2) fierce ✔
(3) calm
(4) mild

Q.134 Select the most appropriate article to fill in the blank. If no article is needed, select 'No article required'.
_____ understanding of the human psyche is crucial for developing effective psychological therapies.

(1) A
(2) No article required
(3) The ✔
(4) An

Q.135 Select the most appropriate article to fill in the blank. Select 'No article required' if no article is required in the blank.
_____ phone rang just as I was leaving.

(1) The ✔
(2) An
(3) No article required
(4) A

QuickSarkari.com | WhatsApp Channel | Telegram: t.me/quick_sarkari

Q.136

Read the given passage and answer the questions that follow.
Lakme India, one of the leading cosmetic brands in the country, has an interesting origin story tied to the post-independence era. In the early 1950s, India was still a young nation finding its footing in various industries. At that time, Indian women primarily used imported beauty products, which were both expensive and difficult to obtain. Recognising the need for affordable and locally made cosmetics, the then Prime Minister of India, Jawaharlal Nehru, approached the Tata Group to create a domestic beauty brand that could meet the needs of Indian women.
In response, the Tata Group launched Lakmé in 1952, named after the French opera 'Lakmé', which was inspired by the Indian goddess Lakshmi, symbolising beauty and prosperity. Lakmé became the first Indian cosmetics brand to offer a wide range of skincare and makeup products specifically designed for Indian skin tones and preferences. The brand quickly gained popularity, as it provided high-quality beauty products at a price point accessible to the average Indian consumer.
Under the leadership of Simone Tata, who played a key role in shaping the brand's identity, Lakmé expanded its product range and became a household name in India. In 1996, the Tata Group sold its stake in Lakmé to Hindustan Unilever, ensuring the brand's continued growth and presence in the Indian market. Today, Lakmé remains a symbol of Indian beauty and innovation, continuing to cater to the evolving needs of modern women across the country.

Why was there a need for a domestic beauty brand in India in the 1950s?

(1) Indian products were inferior.

(2) India wanted to start a fashion industry.

(3) Indian women preferred foreign brands.

(4) Imported products were too expensive. ✔

QuickSarkari.com | WhatsApp Channel | Telegram: t.me/quick_sarkari

Q.137

Read the given passage and answer the questions that follow.
Lakme India, one of the leading cosmetic brands in the country, has an interesting origin story tied to the post-independence era. In the early 1950s, India was still a young nation finding its footing in various industries. At that time, Indian women primarily used imported beauty products, which were both expensive and difficult to obtain. Recognising the need for affordable and locally made cosmetics, the then Prime Minister of India, Jawaharlal Nehru, approached the Tata Group to create a domestic beauty brand that could meet the needs of Indian women.
In response, the Tata Group launched Lakmé in 1952, named after the French opera 'Lakmé', which was inspired by the Indian goddess Lakshmi, symbolising beauty and prosperity. Lakmé became the first Indian cosmetics brand to offer a wide range of skincare and makeup products specifically designed for Indian skin tones and preferences. The brand quickly gained popularity, as it provided high-quality beauty products at a price point accessible to the average Indian consumer.
Under the leadership of Simone Tata, who played a key role in shaping the brand's identity, Lakmé expanded its product range and became a household name in India. In 1996, the Tata Group sold its stake in Lakmé to Hindustan Unilever, ensuring the brand's continued growth and presence in the Indian market. Today, Lakmé remains a symbol of Indian beauty and innovation, continuing to cater to the evolving needs of modern women across the country.

What was the inspiration behind the name 'Lakmé'?

(1) An Indian queen
(2) A place in France
(3) A famous beauty icon
(4) **A French opera ✔**

QuickSarkari

Q.138

Read the given passage and answer the questions that follow.
Lakme India, one of the leading cosmetic brands in the country, has an interesting origin story tied to the post-independence era. In the early 1950s, India was still a young nation finding its footing in various industries. At that time, Indian women primarily used imported beauty products, which were both expensive and difficult to obtain. Recognising the need for affordable and locally made cosmetics, the then Prime Minister of India, Jawaharlal Nehru, approached the Tata Group to create a domestic beauty brand that could meet the needs of Indian women.
In response, the Tata Group launched Lakmé in 1952, named after the French opera 'Lakmé', which was inspired by the Indian goddess Lakshmi, symbolising beauty and prosperity. Lakmé became the first Indian cosmetics brand to offer a wide range of skincare and makeup products specifically designed for Indian skin tones and preferences. The brand quickly gained popularity, as it provided high-quality beauty products at a price point accessible to the average Indian consumer.
Under the leadership of Simone Tata, who played a key role in shaping the brand's identity, Lakmé expanded its product range and became a household name in India. In 1996, the Tata Group sold its stake in Lakmé to Hindustan Unilever, ensuring the brand's continued growth and presence in the Indian market. Today, Lakmé remains a symbol of Indian beauty and innovation, continuing to cater to the evolving needs of modern women across the country.

What role did Simone Tata play in the development of Lakmé?

(1) She brought many French fragrances.

(2) She designed all products.

(3) **She expanded the brand.** ✔

(4) She named the brand after herself.

QuickSarkari

Q.139

Read the given passage and answer the questions that follow.

Lakme India, one of the leading cosmetic brands in the country, has an interesting origin story tied to the post-independence era. In the early 1950s, India was still a young nation finding its footing in various industries. At that time, Indian women primarily used imported beauty products, which were both expensive and difficult to obtain. Recognising the need for affordable and locally made cosmetics, the then Prime Minister of India, Jawaharlal Nehru, approached the Tata Group to create a domestic beauty brand that could meet the needs of Indian women.

In response, the Tata Group launched Lakmé in 1952, named after the French opera 'Lakmé', which was inspired by the Indian goddess Lakshmi, symbolising beauty and prosperity. Lakmé became the first Indian cosmetics brand to offer a wide range of skincare and makeup products specifically designed for Indian skin tones and preferences. The brand quickly gained popularity, as it provided high-quality beauty products at a price point accessible to the average Indian consumer.

Under the leadership of Simone Tata, who played a key role in shaping the brand's identity, Lakmé expanded its product range and became a household name in India. In 1996, the Tata Group sold its stake in Lakmé to Hindustan Unilever, ensuring the brand's continued growth and presence in the Indian market. Today, Lakmé remains a symbol of Indian beauty and innovation, continuing to cater to the evolving needs of modern women across the country.

Why was Lakmé popular among Indian women in the 1950s?

(1) It offered international products.

(2) It was the sole French product.

(3) **It focused on Indian skin tones.** ✔

(4) It was advertised by film stars.

QuickSarkari

Q.140

Read the given passage and answer the questions that follow.
Lakme India, one of the leading cosmetic brands in the country, has an interesting origin story tied to the post-independence era. In the early 1950s, India was still a young nation finding its footing in various industries. At that time, Indian women primarily used imported beauty products, which were both expensive and difficult to obtain. Recognising the need for affordable and locally made cosmetics, the then Prime Minister of India, Jawaharlal Nehru, approached the Tata Group to create a domestic beauty brand that could meet the needs of Indian women.
In response, the Tata Group launched Lakmé in 1952, named after the French opera 'Lakmé', which was inspired by the Indian goddess Lakshmi, symbolising beauty and prosperity. Lakmé became the first Indian cosmetics brand to offer a wide range of skincare and makeup products specifically designed for Indian skin tones and preferences. The brand quickly gained popularity, as it provided high-quality beauty products at a price point accessible to the average Indian consumer.
Under the leadership of Simone Tata, who played a key role in shaping the brand's identity, Lakmé expanded its product range and became a household name in India. In 1996, the Tata Group sold its stake in Lakmé to Hindustan Unilever, ensuring the brand's continued growth and presence in the Indian market. Today, Lakmé remains a symbol of Indian beauty and innovation, continuing to cater to the evolving needs of modern women across the country.

How did Lakmé impact the beauty industry in India?

(1) It imported products from France.
(2) **It made cosmetics affordable for Indian women. ✔**
(3) It only catered to elite customers.
(4) It reduced the use of cosmetics in India.

Q.141 Select the option that can be used as a one-word substitute for the given group of words. The theory that believes that nothing can be known about the existence of God

(1) Nihilism
(2) Athleticism
(3) Skepticism
(4) **Agnosticism ✔**

Q.142 Select the option that can be used as a one-word substitute for the given group of words. A person who is new to a subject or activity

(1) Professional
(2) **Novice ✔**
(3) Veteran
(4) Expert

Q.143 Select the most appropriate ANTONYM of the underlined word in the given sentence. His altruistic actions were praised by everyone at the charity event.

(1) **Self-centred ✔**
(2) Compassionate
(3) Thoughtful
(4) Generous

Q.144 Select the most appropriate idiom that can substitute the underlined segment in the given sentence.
After the misunderstanding, Sarah decided to clarify the situation and explain herself.

(1) set the record straight ✔
(2) paint the town red
(3) hit the nail on the head
(4) walk on air

Q.145 Fill in the blank with the most appropriate homonym.
He deserves all the _____ for his hard work.

(1) praise ✔
(2) preys
(3) prays
(4) prase

Q.146 Select the most appropriate meaning of the given proverb.
You can lead a horse to water, but you can't make him drink it

(1) When you really encourage a person, he can follow every instruction of yours
(2) You can make someone do something but they have to listen to your carefully
(3) Without watching what others are doing, you cannot guide them well
(4) You can make it easy for someone to do something, but you cannot force them to do it ✔

Q.147 Select the option that can be used as a one-word substitute for the given group of words. A sudden and uncontrollable outburst of anger

(1) Tranquility
(2) Tantrum ✔
(3) Serenity
(4) Composure

Q.148 Select the most appropriate option that rectifies the incorrectly spelt word in the given sentence.
The physician recommended a strict regimant for the patient's recovery.

(1) Physician - phycisian
(2) Recovery - recovary
(3) Recommended - recomendded
(4) Regimant - regimen ✔

Q.149 Identify the INCORRECTLY spelt word in the given sentence.
Severe penalties are dealt out to persistant offenders.

(1) penalties
(2) persistant ✔
(3) offenders
(4) severe

QuickSarkari.com | WhatsApp Channel | Telegram: t.me/quick_sarkari

Q.150 Select the most appropriate homonym to fill in the blank.
She had to _____ the pain during the procedure.

(1) beer
(2) **bear ✔**
(3) be
(4) bare

Q.151 Select the most appropriate idiom that can substitute the underlined segment in the given sentence.
He was very excited for the trip, but after hearing the bad news, his thrill vanished quickly. Thus, his fantasies were shattered.

(1) fish came out of water
(2) **bubbles were burst ✔**
(3) marbles were lost
(4) sacked was hit

Q.152 Select the most appropriate ANTONYM of the highlighted word in the given sentence. The oleaginous politician's slick charm and fawning were easily seen through by the discerning voters.

(1) Oily
(2) Regal
(3) Copious
(4) **Earnest ✔**

Q.153 Select the most appropriate ANTONYM of the given word.
Replenish786

(1) **Deplete ✔**
(2) Furnish
(3) Charge
(4) Refill

Q.154 Select the option that can be used as a one-word substitute for the given group of words. A person who is quick to understand, learn and devise or apply ideas

(1) Dim-witted
(2) **Clever ✔**
(3) Slow
(4) Obtuse

Q.155 Select the most appropriate ANTONYM of the underlined word to fill the blank.
The room was filled with laughter, but after the sad news, the atmosphere turned _____.

(1) **gloomy ✔**
(2) cheerful
(3) bright
(4) happy

Quick Sarkari

Q.156

In the following passage, some words have been deleted. Read the passage carefully and select the most appropriate option to fill in each blank.
Do boys and girls do everything differently? People opine that women in politics (1)_____ their leadership role differently than men. If we look at academics, girls generally (2)_____ boys. In our society, boys and girls are not treated similarly. In the employment sector, many believe that male and female employees have different working patterns. It is strongly believed that male employees consider work as (3)_____ to their lives, while females work for fun. There are endless debates on boys and girls being different. But employers want the work to be done. Hence, they (4)_____ employment bias. Consequently, the prevailing discriminations are also somewhat quelled. Keeping these (5)_____ explanations aside, employment is pivotal for sustenance.

Select the most appropriate option to fill in blank number 4.

(1) ignore
(2) highlight
(3) oversee
(4) stamp out ✔

Q.157

In the following passage, some words have been deleted. Read the passage carefully and select the most appropriate option to fill in each blank.
Do boys and girls do everything differently? People opine that women in politics (1)_____ their leadership role differently than men. If we look at academics, girls generally (2)_____ boys. In our society, boys and girls are not treated similarly. In the employment sector, many believe that male and female employees have different working patterns. It is strongly believed that male employees consider work as (3)_____ to their lives, while females work for fun. There are endless debates on boys and girls being different. But employers want the work to be done. Hence, they (4)_____ employment bias. Consequently, the prevailing discriminations are also somewhat quelled. Keeping these (5)_____ explanations aside, employment is pivotal for sustenance.

Select the most appropriate option to fill in blank number 3.

(1) trivial
(2) preliminary
(3) meaningless
(4) pivotal ✔

Q.158

In the following passage, some words have been deleted. Read the passage carefully and select the most appropriate option to fill in each blank.
Do boys and girls do everything differently? People opine that women in politics (1)_____ their leadership role differently than men. If we look at academics, girls generally (2)_____ boys. In our society, boys and girls are not treated similarly. In the employment sector, many believe that male and female employees have different working patterns. It is strongly believed that male employees consider work as (3)_____ to their lives, while females work for fun. There are endless debates on boys and girls being different. But employers want the work to be done. Hence, they (4)_____ employment bias. Consequently, the prevailing discriminations are also somewhat quelled. Keeping these (5)_____ explanations aside, employment is pivotal for sustenance.

Select the most appropriate option to fill in blank number 2.

(1) outdo ✔
(2) outcast
(3) outlive
(4) outwork

Q.159

In the following passage, some words have been deleted. Read the passage carefully and select the most appropriate option to fill in each blank.
Do boys and girls do everything differently? People opine that women in politics (1)_____ their leadership role differently than men. If we look at academics, girls generally (2)_____ boys. In our society, boys and girls are not treated similarly. In the employment sector, many believe that male and female employees have different working patterns. It is strongly believed that male employees consider work as (3)_____ to their lives, while females work for fun. There are endless debates on boys and girls being different. But employers want the work to be done. Hence, they (4)_____ employment bias. Consequently, the prevailing discriminations are also somewhat quelled. Keeping these (5)_____ explanations aside, employment is pivotal for sustenance.

Select the most appropriate option to fill in blank number 5.

(1) compromising
(2) conscious
(3) contradictory ✔
(4) complimentary

Q.160

In the following passage, some words have been deleted. Read the passage carefully and select the most appropriate option to fill in each blank.
Do boys and girls do everything differently? People opine that women in politics (1)_____ their leadership role differently than men. If we look at academics, girls generally (2)_____ boys. In our society, boys and girls are not treated similarly. In the employment sector, many believe that male and female employees have different working patterns. It is strongly believed that male employees consider work as (3)_____ to their lives, while females work for fun. There are endless debates on boys and girls being different. But employers want the work to be done. Hence, they (4)_____ employment bias. Consequently, the prevailing discriminations are also somewhat quelled. Keeping these (5)_____ explanations aside, employment is pivotal for sustenance.

Select the most appropriate option to fill in blank number 1.

(1) follow
(2) **exercise ✔**
(3) observe
(4) enact

Hindi Language and Comprehension

Q.161 निम्नलिखित वाक्य के लिए उचित क्रिया विशेषण शब्द का प्रयोग करें- मैं _____ होकर आया हूँ।

(1) **वहाँ ✔**
(2) ध्यानपूर्वक
(3) धीरे
(4) कहाँ

Q.162 वाक्य विन्यास की दृष्टि से दिए गए वाक्य के किस अंश में त्रुटि है-- पैसा मिलने के उसे अलावा प्रोत्साहन और प्रशंसा भी मिली।

(1) पैसा मिलने के
(2) **उसे अलावा ✔**
(3) प्रोत्साहन और
(4) प्रशंसा भी मिली।

Q.163 निम्नलिखित वाक्य के लिए उचित क्रिया विशेषण शब्द का प्रयोग करें- हमें _____ सूर्य नमस्कार करना चाहिए।

(1) गीत
(2) **प्रतिदिन ✔**
(3) चलते-चलते
(4) निकट

Q.164 'मोहित कम बोलने वाला बालक है।' रेखांकित वाक्यांश के लिए सर्वाधिक उपयुक्त शब्द है-

(1) अपभाषी
(2) अभाषी
(3) बहुभाषी
(4) **मितभाषी ✔**

Q.165 'आप मियां मांगते दरवाजे खड़ा दरवेश' इस लोकोक्ति का क्या अर्थ है?

(1) दोहरा लाभ होना

(2) जो स्वयं दरिद्र है वह दूसरों की सहायता नहीं कर सकता ✔

(3) विपत्ति को जानबूझकर आमंत्रित करना

(4) अमीर गरीब सभी को मरना है

Q.166 निम्नलिखित में से शुद्ध वाक्य का चयन करें-

(1) इन वर्षों के बीच दोनों देशों के बीच कटुता उत्पन्न हो गयी|

(2) अपने देश के लिए प्रत्येक भारतीय अपनी जान न्योछावर कर सकता है| ✔

(3) धीरे-धीरे अच्छे विद्यार्थी सफल होते पढ़कर हैं|

(4) मुझे बताओ तुम्हारा कहाँ हुआ था जन्म?

Q.167 निम्नलिखित वाक्य के लिए उचित विशेषण का प्रयोग करें- हमें _____ वातावरण में रहना चाहिए।

(1) कुछ

(2) यह

(3) स्वच्छ ✔

(4) गोल

Q.168 निम्नलिखित वाक्य को क्रम में लिखें।

रास्ते में बहुत था ट्रैफिक इसलिए हम देर आधा घंटा से पहुंचे हैं।

(1) रास्ते में ट्रैफिक देर से बहुत था इसलिए हम आधा घंटा हैं पहुंचे

(2) रास्ते में इसलिए हम ट्रैफिक बहुत आधा था घंटा देर से पहुंचे हैं।

(3) ट्रैफिक बहुत रास्ते में था इसलिए घंटा देर हम आधा से पहुंचे हैं।

(4) रास्ते में ट्रैफिक बहुत था इसलिए हम आधा घंटा देर से पहुंचे हैं। ✔

Q.169 निम्नलिखित वाक्य के लिए उचित विशेषण का प्रयोग करें- मैंने _____ सेब खरीदे।

(1) एक गज

(2) एक किलो ✔

(3) एक बीघा

(4) एक लीटर

Q.170 अधोलिखित वाक्यांश के लिए एक सार्थक शब्द क्या होगा?

'व्यक्ति जो ठीक समय पर तुरंत किसी बात या युक्ति को सोच ले'।

(1) प्रत्युत्पन्न

(2) प्रत्यागत

(3) प्रत्युक्त

(4) प्रत्युत्पन्नमति ✔

Q.171 'बात तक न पूछना' मुहावरे का अर्थ निम्न में से होगा-737

(1) आदर न करना ✔

(2) आज्ञा न लेना

(3) बात न करना

(4) नाराज़ होना

Q.172 निम्नलिखित गद्य में से अतिरिक्त वाक्य का चुनाव करें।
रात काफी हो चुकी थी। चंद्रमा के प्रकाश में सबकुछ दूधिया नज़र आ रहा था। चंद्रमा के इस प्रकाश में ज्योति का चेहरा चमक रहा था। तभी उसने देखा सूर्य ग्रहण होने लगा।

(1) रात काफी हो चुकी थी।
(2) चंद्रमा के इस प्रकाश में ज्योति का चेहरा चमक रहा था।
(3) तभी उसने देखा सूर्य ग्रहण होने लगा। ✔
(4) चंद्रमा के प्रकाश में सबकुछ दूधिया नज़र आ रहा था।

Q.173 नीचे दिए परिच्छेद का अतिरिक्त वाक्य चुनें- वसंत ऋतु के आते ही शीत की कठोरता जाती रही। पश्चिम के पवन ने वृक्षों के जीर्ण-शीर्ण पत्ते गिरा दिए। तेनसिंह साहसी और वीर थे। वृक्षों और लताओं में नए पत्ते और रंग-बिरंगे फूल निकल आए।

(1) तेनसिंह साहसी और वीर थे। ✔
(2) वृक्षों और लताओं में नए पत्ते और रंग-बिरंगे फूल निकल आए।
(3) वसंत ऋतु के आते ही शीत की कठोरता जाती रही।
(4) पश्चिम के पवन ने वृक्षों के जीर्ण-शीर्ण पत्ते गिरा दिए।

Q.174 निम्नलिखित वाक्य को क्रम में लिखें।
तुम और रिया रात को सिनेमा जा रहे हो फिल्म देखने तो हम भी चलें तुम्हारे साथ।

(1) हम भी फिल्म देखने तुम और रिया तुम्हारे साथ चलें सिनेमा जा रहे हो तो।
(2) तुम और फिल्म रिया देखने सिनेमा तो हम भी तुम्हारे जा रहे हो साथ चलें।
(3) तुम सिनेमा जा और रिया फिल्म देखने साथ रहे हो तो हम भी तुम्हारे चलें।
(4) तुम और रिया फिल्म देखने सिनेमा जा रहे हो तो हम भी तुम्हारे साथ चलें। ✔

Q.175 निम्नलिखित वाक्य में क्रिया विशेषण संबंधी अशुद्धि है। दिए गए विकल्पों में से उचित क्रिया विशेषण द्वारा वाक्य को शुद्ध कीजिए- जंगल में बड़ा अंधकार है।

(1) अद्भुत
(2) घना ✔
(3) बहुत
(4) घनघोर

Q.176

दिए गए गद्यांश के आधार पर निम्नलिखित प्रश्नों के उत्तर दीजिए – सत्य अपना पूरा मूल्य चाहता है । उसके साथ समझौता नहीं हो सकता । साहित्य के चरम सत्य को पाने के लिए भी उसका पूरा - पूरा मूल्य चुकाना ही समीचीन है । लोग पग - पग पर सहज और सीधे साधनों की दुहाई दिया करते हैं , शायद किसी बड़े लक्ष्य की बात नहीं सोचते । मनुष्य को उसके उच्चतर लक्ष्य तक पहुँचाने के लिए उसके प्रतिदिन के व्यवहार में आने वाली प्रवृत्तियों के साथ सुलह करने से काम नहीं चलेगा । कठोर संयम और त्याग द्वारा ही उसे बड़ा बनाया जा सकेगा । जो बात इस क्षेत्र में सत्य है , वह सभी क्षेत्रों में सत्य है – साहित्य में , भाषा में , आचार में , विचार में , सर्वत्र । भाषा को ही देखिए । मनुष्य अपने आहार और निद्रा के साधनों को जुटाने के लिए भाषा का व्यवहार करता है । यह उसकी अनायास लब्ध भाषा है परन्तु यदि उसे इस धरातल से ऊपर उठना है , तो उतने से काम नहीं बनेगा । सहज भाषा आवश्यक है किन्तु सहज भाषा का मतलब है , सहज ही महान बनाने वाली भाषा , रास्ते में बटोरकर संग्रह की हुई भाषा नहीं ।

' समीचीन ' का अर्थ है -

(1) प्रायोगिक
(2) इतिहास-सम्मत
(3) महत्वपूर्ण
(4) उचित ✔

Q.177

दिए गए गद्यांश के आधार पर निम्नलिखित प्रश्नों के उत्तर दीजिए – सत्य अपना पूरा मूल्य चाहता है । उसके साथ समझौता नहीं हो सकता । साहित्य के चरम सत्य को पाने के लिए भी उसका पूरा - पूरा मूल्य चुकाना ही समीचीन है । लोग पग - पग पर सहज और सीधे साधनों की दुहाई दिया करते हैं , शायद किसी बड़े लक्ष्य की बात नहीं सोचते । मनुष्य को उसके उच्चतर लक्ष्य तक पहुँचाने के लिए उसके प्रतिदिन के व्यवहार में आने वाली प्रवृत्तियों के साथ सुलह करने से काम नहीं चलेगा । कठोर संयम और त्याग द्वारा ही उसे बड़ा बनाया जा सकेगा । जो बात इस क्षेत्र में सत्य है , वह सभी क्षेत्रों में सत्य है – साहित्य में , भाषा में , आचार में , विचार में , सर्वत्र । भाषा को ही देखिए । मनुष्य अपने आहार और निद्रा के साधनों को जुटाने के लिए भाषा का व्यवहार करता है । यह उसकी अनायास लब्ध भाषा है परन्तु यदि उसे इस धरातल से ऊपर उठना है , तो उतने से काम नहीं बनेगा । सहज भाषा आवश्यक है किन्तु सहज भाषा का मतलब है , सहज ही महान बनाने वाली भाषा , रास्ते में बटोरकर संग्रह की हुई भाषा नहीं ।

' सर्वत्र ' का विलोम शब्द है -186

(1) ताम्रपत्र

(2) समयानुसार कार्य

(3) सब जगह

(4) **कहीं नहीं ✔**

Q.178

दिए गए गद्यांश के आधार पर निम्नलिखित प्रश्नों के उत्तर दीजिए – सत्य अपना पूरा मूल्य चाहता है । उसके साथ समझौता नहीं हो सकता । साहित्य के चरम सत्य को पाने के लिए भी उसका पूरा - पूरा मूल्य चुकाना ही समीचीन है । लोग पग - पग पर सहज और सीधे साधनों की दुहाई दिया करते हैं , शायद किसी बड़े लक्ष्य की बात नहीं सोचते । मनुष्य को उसके उच्चतर लक्ष्य तक पहुँचाने के लिए उसके प्रतिदिन के व्यवहार में आने वाली प्रवृत्तियों के साथ सुलह करने से काम नहीं चलेगा । कठोर संयम और त्याग द्वारा ही उसे बड़ा बनाया जा सकेगा । जो बात इस क्षेत्र में सत्य है , वह सभी क्षेत्रों में सत्य है – साहित्य में , भाषा में , आचार में , विचार में , सर्वत्र । भाषा को ही देखिए । मनुष्य अपने आहार और निद्रा के साधनों को जुटाने के लिए भाषा का व्यवहार करता है । यह उसकी अनायास लब्ध भाषा है परन्तु यदि उसे इस धरातल से ऊपर उठना है , तो उतने से काम नहीं बनेगा । सहज भाषा आवश्यक है किन्तु सहज भाषा का मतलब है , सहज ही महान बनाने वाली भाषा , रास्ते में बटोरकर संग्रह की हुई भाषा नहीं ।

लक्ष्य को बड़ा किसके द्वारा बनाया जा सकता है ?

(1) यथार्थ और श्रम

(2) कल्पना और बुद्धि

(3) प्रतिभा और स्वप्न

(4) **संयम और त्याग ✔**

Q.179

दिए गए गद्यांश के आधार पर निम्नलिखित प्रश्नों के उत्तर दीजिए – सत्य अपना पूरा मूल्य चाहता है । उसके साथ समझौता नहीं हो सकता । साहित्य के चरम सत्य को पाने के लिए भी उसका पूरा - पूरा मूल्य चुकाना ही समीचीन है । लोग पग - पग पर सहज और सीधे साधनों की दुहाई दिया करते हैं , शायद किसी बड़े लक्ष्य की बात नहीं सोचते । मनुष्य को उसके उच्चतर लक्ष्य तक पहुँचाने के लिए उसके प्रतिदिन के व्यवहार में आने वाली प्रवृत्तियों के साथ सुलह करने से काम नहीं चलेगा । कठोर संयम और त्याग द्वारा ही उसे बड़ा बनाया जा सकेगा । जो बात इस क्षेत्र में सत्य है , वह सभी क्षेत्रों में सत्य है – साहित्य में , भाषा में , आचार में , विचार में , सर्वत्र । भाषा को ही देखिए । मनुष्य अपने आहार और निद्रा के साधनों को जुटाने के लिए भाषा का व्यवहार करता है । यह उसकी अनायास लब्ध भाषा है परन्तु यदि उसे इस धरातल से ऊपर उठना है , तो उतने से काम नहीं बनेगा । सहज भाषा आवश्यक है किन्तु सहज भाषा का मतलब है , सहज ही महान बनाने वाली भाषा , रास्ते में बटोरकर संग्रह की हुई भाषा नहीं ।

सहज भाषा का आशय है -184

(1) क्लिष्ट भाषा

(2) संग्रह की भाषा

(3) **सहज ही महान बनाने वाली भाषा ✔**

(4) चमत्कारिक भाषा

Q.180

दिए गए गद्यांश के आधार पर निम्नलिखित प्रश्नों के उत्तर दीजिए – सत्य अपना पूरा मूल्य चाहता है । उसके साथ समझौता नहीं हो सकता । साहित्य के चरम सत्य को पाने के लिए भी उसका पूरा - पूरा मूल्य चुकाना ही समीचीन है । लोग पग - पग पर सहज और सीधे साधनों की दुहाई दिया करते हैं , शायद किसी बड़े लक्ष्य की बात नहीं सोचते । मनुष्य को उसके उच्चतर लक्ष्य तक पहुँचाने के लिए उसके प्रतिदिन के व्यवहार में आने वाली प्रवृत्तियों के साथ सुलह करने से काम नहीं चलेगा । कठोर संयम और त्याग द्वारा ही उसे बड़ा बनाया जा सकेगा । जो बात इस क्षेत्र में सत्य है , वह सभी क्षेत्रों में सत्य है – साहित्य में , भाषा में , आचार में , विचार में , सर्वत्र । भाषा को ही देखिए । मनुष्य अपने आहार और निद्रा के साधनों को जुटाने के लिए भाषा का व्यवहार करता है । यह उसकी अनायास लब्ध भाषा है परन्तु यदि उसे इस धरातल से ऊपर उठना है , तो उतने से काम नहीं बनेगा । सहज भाषा आवश्यक है किन्तु सहज भाषा का मतलब है , सहज ही महान बनाने वाली भाषा , रास्ते में बटोरकर संग्रह की हुई भाषा नहीं ।

किसके साथ समझौता नहीं हो सकता ?

(1) मूल्य

(2) मूल्य के सत्य

(3) सत्य के मूल्य

(4) **सत्य ✔**

Q.181 "मीन मेख निकालना" – इस मुहावरे का अर्थ विकल्पों में से चयन कीजिए।

(1) नष्ट करना

(2) बहुत प्रसन्न होना

(3) भयभीत होना

(4) **दोष ढूँढना ✔**

Q.182 निम्नलिखित विकल्पों में शुद्ध वाक्य को अंकित कीजिए।

(1) **आज भी स्वच्छता के मौलिक उद्देश्य से कई लोग अपरिचित हैं। ✔**

(2) आज भी स्वच्छता के मौलिक उद्श्य से कई लोग अपरिचित हैं।

(3) आज भी स्वच्छता के मौलिक उद्देश्य के लिए कई लोग अपरिचित है।

(4) आज बी स्वच्छता के मौलिक उद्देश्य से कई लोग अपरिचित हैं।

Q.183 शुक्ल का विलोम शब्द है-568

(1) केशव

(2) शुष्क

(3) कृष्ण ✔

(4) मुरारी

Q.184 निम्नलिखित में से कौन सा एक 'पतंग' का अनेकार्थी नहीं है-

(1) सूर्य

(2) वस्त्र ✔

(3) पक्षी

(4) पतिंगा

Q.185 निम्नलिखित शब्दों में से 'अथाह' का पर्याय है-729

(1) अधिक

(2) उथला

(3) अगाध ✔

(4) अतिशय

Q.186 दिए गए किस वाक्य में वर्तनी संबंधी त्रुटि है-

(1) संन्यासियों की त्वचा शुष्क होती है

(2) हिंस्र जीवों से जंगल भरा हुआ था

(3) तरूणियाँ क्रीड़ा कर रही हैं ✔

(4) वृष्टि कुछ व्याधियाँ भी साथ लाती है

Q.187 निम्नलिखित में से मुहावरा एवं उसके गलत अर्थ वाले युग्म को छांटिए।

(1) मुँह खुलना - प्रसंशा हेतु मुँह खुलना ✔

(2) दाँत काटी रोटी - गहरी दोस्ती होना

(3) नाक कटना - इज्जत जाना

(4) हाथ गरम करना - घूस देना

Q.188 दिए गए वाक्य के किस भाग में त्रुटि है ?

'पिछले कुछ वर्षों से दुनिया कोरोना महामारी से झूज रही थी।'

(1) महामारी से

(2) झूज रही थी। ✔

(3) पिछले कुछ वर्षों

(4) से दुनिया कोरोना

Q.189 निम्नलिखित में से एक 'तद्भव शब्द' नहीं है-

(1) सुआ

(2) सुथरा

(3) सुघड़

(4) शुक ✔

Q.190 निम्नलिखित में से एक 'तत्सम शब्द' नहीं है-3502

(1) शिर

(2) **साठ ✔**

(3) शिला

(4) शिक्षा

Q.191 नीचे दिए विकल्पों में से वह शब्द चुनें जो 'अक्ष' का एक अर्थ नहीं है।

(1) **सूर्य ✔**

(2) सर्प

(3) ज्ञान

(4) आँख

Q.192 निम्नलिखित में से कौन-सा विलोम युग्म असुमेलित है-734

(1) अभिप्रेत – अनभिप्रेत

(2) अभिमुख – विमुख

(3) अभिज्ञ – अनभिज्ञ

(4) **अभिमानी – अभिहित ✔**

Q.193 निलय, निकेतन इन पर्यायवाची शब्दों का अर्थ है –

(1) पर्वत

(2) **आवास ✔**

(3) प्रेक्षागृह

(4) कोंपल

Q.194 दिए गए वाक्य के किस भाग में त्रुटि है ?
'वैश्विक मामलों में भारत का शांतिपूर्ण व संतुलित दृष्टिकोण परीलक्षित होता है।'

(1) **परीलक्षित होता है। ✔**

(2) वैश्विक मामलों में

(3) संतुलित दृष्टिकोण

(4) भारत का शांतिपूर्ण व

Q.195 'अपना लाल गँवाय के दर-दर माँगे भीख' लोकोक्ति का अर्थ निम्न में से होगा-1394

(1) **अपनी मूल्यवान वस्तु खोकर दूसरों का मोहताज बनना। ✔**

(2) लाभ जहाँ से होता है वहीं खर्च हो जाता है।

(3) स्वाभिमान की रक्षा नौकरी में नहीं हो सकती है।

(4) जिसका बेटा नहीं रहता वह भीख माँगता है।

QuickSarkari.com | WhatsApp Channel | Telegram: t.me/quick_sarkari

Q.196

निम्नलिखित अनुच्छेद को पढ़कर पूछे गए 21 से 25 प्रश्नों के उत्तर विकल्पों में से चयन करके रिक्त स्थानों भरिए।
स्वस्थ शरीर वाला मनुष्य ही संसार के सभी प्रकार के सुखों को भोग सकता है तथा (21) _____ जीवन बिता सकता है। स्वस्थ शरीर के लिए (22) _____ भोजन तथा व्यायाम दोनों ही अति आवश्यक हैं। व्यायाम करने का भी ढंग होता है। इसे करते समय सदा कुछ सावधानियाँ बरतनी चाहिए। पहली सावधानी यह है कि आयु, समय व शरीर की
(23) _____ के अनुसार ही व्यायाम करना चाहिए। दूसरी सावधानी यह है कि सही व्यायाम का चुनाव करना चाहिए तथा व्यायाम की उचित मात्रा निश्चित करनी चाहिए। तीसरी सावधानी यह है कि शुद्ध वायु, प्रकाश वाले खुले स्थान में व्यायाम करना चाहिए। व्यायाम के अनेक लाभ हैं - इससे शरीर में शुद्ध रक्त का (24) _____ होता है। भोजन ठीक से पचता है, शरीर पुष्ट बन जाता है, (25) _____ कम अनुभव होती है तथा मस्तिष्क भी स्वस्थ रहता है।

निम्न विकल्पों में से सही शब्द चयन कर अनुच्छेद में रिक्त स्थान भरिए।(25)

(1) थकाहारा
(2) थकना
(3) थकान ✔
(4) थकाना

Q.197

निम्नलिखित अनुच्छेद को पढ़कर पूछे गए 21 से 25 प्रश्नों के उत्तर विकल्पों में से चयन करके रिक्त स्थानों भरिए।
स्वस्थ शरीर वाला मनुष्य ही संसार के सभी प्रकार के सुखों को भोग सकता है तथा (21) _____ जीवन बिता सकता है। स्वस्थ शरीर के लिए (22) _____ भोजन तथा व्यायाम दोनों ही अति आवश्यक हैं। व्यायाम करने का भी ढंग होता है। इसे करते समय सदा कुछ सावधानियाँ बरतनी चाहिए। पहली सावधानी यह है कि आयु, समय व शरीर की
(23) _____ के अनुसार ही व्यायाम करना चाहिए। दूसरी सावधानी यह है कि सही व्यायाम का चुनाव करना चाहिए तथा व्यायाम की उचित मात्रा निश्चित करनी चाहिए। तीसरी सावधानी यह है कि शुद्ध वायु, प्रकाश वाले खुले स्थान में व्यायाम करना चाहिए। व्यायाम के अनेक लाभ हैं - इससे शरीर में शुद्ध रक्त का (24) _____ होता है। भोजन ठीक से पचता है, शरीर पुष्ट बन जाता है, (25) _____ कम अनुभव होती है तथा मस्तिष्क भी स्वस्थ रहता है।

निम्न विकल्पों में से सही शब्द चयन कर अनुच्छेद में रिक्त स्थान भरिए।(21)

(1) सुख - दुःख
(2) सुखजीवी
(3) सुखमय ✔
(4) सुखवंत

Q.198

निम्नलिखित अनुच्छेद को पढ़कर पूछे गए 21 से 25 प्रश्नों के उत्तर विकल्पों में से चयन करके रिक्त स्थानों भरिए।
स्वस्थ शरीर वाला मनुष्य ही संसार के सभी प्रकार के सुखों को भोग सकता है तथा (21) _____ जीवन बिता सकता है। स्वस्थ शरीर के लिए (22) _____ भोजन तथा व्यायाम दोनों ही अति आवश्यक हैं। व्यायाम करने का भी ढंग होता है। इसे करते समय सदा कुछ सावधानियाँ बरतनी चाहिए। पहली सावधानी यह है कि आयु, समय व शरीर की
(23) _____ के अनुसार ही व्यायाम करना चाहिए। दूसरी सावधानी यह है कि सही व्यायाम का चुनाव करना चाहिए तथा व्यायाम की उचित मात्रा निश्चित करनी चाहिए। तीसरी सावधानी यह है कि शुद्ध वायु, प्रकाश वाले खुले स्थान में व्यायाम करना चाहिए। व्यायाम के अनेक लाभ हैं - इससे शरीर में शुद्ध रक्त का (24) _____ होता है। भोजन ठीक से पचता है, शरीर पुष्ट बन जाता है, (25) _____ कम अनुभव होती है तथा मस्तिष्क भी स्वस्थ रहता है।

निम्न विकल्पों में से सही शब्द चयन कर अनुच्छेद में रिक्त स्थान भरिए।(22)

(1) पौरुष
(2) **पौष्टिक ✔**
(3) पौरेय
(4) पौसार

Q.199

निम्नलिखित अनुच्छेद को पढ़कर पूछे गए 21 से 25 प्रश्नों के उत्तर विकल्पों में से चयन करके रिक्त स्थानों भरिए।
स्वस्थ शरीर वाला मनुष्य ही संसार के सभी प्रकार के सुखों को भोग सकता है तथा (21) _____ जीवन बिता सकता है। स्वस्थ शरीर के लिए (22) _____ भोजन तथा व्यायाम दोनों ही अति आवश्यक हैं। व्यायाम करने का भी ढंग होता है। इसे करते समय सदा कुछ सावधानियाँ बरतनी चाहिए। पहली सावधानी यह है कि आयु, समय व शरीर की
(23) _____ के अनुसार ही व्यायाम करना चाहिए। दूसरी सावधानी यह है कि सही व्यायाम का चुनाव करना चाहिए तथा व्यायाम की उचित मात्रा निश्चित करनी चाहिए। तीसरी सावधानी यह है कि शुद्ध वायु, प्रकाश वाले खुले स्थान में व्यायाम करना चाहिए। व्यायाम के अनेक लाभ हैं - इससे शरीर में शुद्ध रक्त का (24) _____ होता है। भोजन ठीक से पचता है, शरीर पुष्ट बन जाता है, (25) _____ कम अनुभव होती है तथा मस्तिष्क भी स्वस्थ रहता है।

निम्न विकल्पों में से सही शब्द चयन कर अनुच्छेद में रिक्त स्थान भरिए।(23)

(1) मार्मिकता
(2) योग्यता
(3) शीलता
(4) **क्षमता ✔**

Q.200

निम्नलिखित अनुच्छेद को पढ़कर पूछे गए 21 से 25 प्रश्नों के उत्तर विकल्पों में से चयन करके रिक्त स्थानों भरिए।
स्वस्थ शरीर वाला मनुष्य ही संसार के सभी प्रकार के सुखों को भोग सकता है तथा (21) _____ जीवन बिता सकता है। स्वस्थ शरीर के लिए (22) _____ भोजन तथा व्यायाम दोनों ही अति आवश्यक हैं। व्यायाम करने का भी ढंग होता है। इसे करते समय सदा कुछ सावधानियाँ बरतनी चाहिए। पहली सावधानी यह है कि आयु, समय व शरीर की
(23) _____ के अनुसार ही व्यायाम करना चाहिए। दूसरी सावधानी यह है कि सही व्यायाम का चुनाव करना चाहिए तथा व्यायाम की उचित मात्रा निश्चित करनी चाहिए। तीसरी सावधानी यह है कि शुद्ध वायु, प्रकाश वाले खुले स्थान में व्यायाम करना चाहिए। व्यायाम के अनेक लाभ हैं - इससे शरीर में शुद्ध रक्त का (24) _____ होता है। भोजन ठीक से पचता है, शरीर पुष्ट बन जाता है, (25) _____ कम अनुभव होती है तथा मस्तिष्क भी स्वस्थ रहता है।

निम्न विकल्पों में से सही शब्द चयन कर अनुच्छेद में रिक्त स्थान भरिए।(24)

(1) संजनन

(2) संसारी

(3) **संचार** ✔

(4) संचालक

Answer Key / उत्तर कुंजी

1 3	**2** 1	**3** 1	**4** 2	**5** 2	**6** 3	**7** 3	**8** 1	**9** 1	**10** 3	**11** 1	**12** 2	**13** 3	**14** 4	**15** 1
16 2	**17** 3	**18** 3	**19** 2	**20** 3	**21** 2	**22** 2	**23** 1	**24** 4	**25** 1	**26** 4	**27** 3	**28** 3	**29** 1	**30** 2
31 1	**32** 4	**33** 4	**34** 2	**35** 4	**36** 1	**37** 2	**38** 3	**39** 3	**40** 4	**41** 1	**42** 1	**43** 3	**44** 4	**45** 3
46 1	**47** 1	**48** 2	**49** 3	**50** 2	**51** 3	**52** 2	**53** 2	**54** 1	**55** 2	**56** 2	**57** 3	**58** 1	**59** 2	**60** 4
61 1	**62** 4	**63** 1	**64** 2	**65** 1	**66** 1	**67** 4	**68** 3	**69** 2	**70** 4	**71** 3	**72** 2	**73** 2	**74** 1	**75** 3
76 4	**77** 2	**78** 3	**79** 1	**80** 3	**81** 4	**82** 2	**83** 2	**84** 3	**85** 3	**86** 4	**87** 3	**88** 2	**89** 2	**90** 4
91 4	**92** 3	**93** 1	**94** 3	**95** 1	**96** 1	**97** 4	**98** 3	**99** 2	**100** 2	**101** 4	**102** 3	**103** 3	**104** 1	**105** 2
106 4	**107** 3	**108** 3	**109** 1	**110** 2	**111** 2	**112** 1	**113** 1	**114** 1	**115** 4	**116** 3	**117** 4	**118** 2	**119** 3	**120** 2
121 3	**122** 3	**123** 4	**124** 3	**125** 1	**126** 4	**127** 2	**128** 1	**129** 3	**130** 1	**131** 2	**132** 4	**133** 2	**134** 3	**135** 1
136 4	**137** 4	**138** 3	**139** 3	**140** 2	**141** 4	**142** 2	**143** 1	**144** 1	**145** 1	**146** 4	**147** 2	**148** 4	**149** 2	**150** 2
151 2	**152** 4	**153** 1	**154** 2	**155** 1	**156** 4	**157** 4	**158** 1	**159** 3	**160** 2	**161** 1	**162** 2	**163** 2	**164** 4	**165** 2
166 2	**167** 3	**168** 4	**169** 2	**170** 4	**171** 1	**172** 3	**173** 1	**174** 4	**175** 2	**176** 4	**177** 4	**178** 4	**179** 3	**180** 4
181 4	**182** 1	**183** 3	**184** 2	**185** 3	**186** 3	**187** 1	**188** 2	**189** 4	**190** 2	**191** 1	**192** 4	**193** 2	**194** 1	**195** 1
196 3	**197** 3	**198** 2	**199** 4	**200** 3										

GOVT. OF NCT OF DELHI
Delhi Subordinate Services Selection Board
FC-18, Institutional Area, Karkardooma, Delhi – 110092.
www.dsssb.delhigovt.nic.in

Participant ID	
Participant Name	
Test Center Name	
Test Date	30/06/2025
Test Time	5:00 PM - 7:00 PM
Subject	Xerox Operator

Section : **General intelligence and Reasoning Ability**

Q.1 शब्द EXCLAIM के प्रत्येक अक्षर को वर्णमाला क्रम में व्यवस्थित किया जाता है। इस प्रकार बने नए अक्षर-समूह में बाएं से चौथे अक्षर और दाएं से दूसरे अक्षर के बीच अंग्रेजी वर्णमाला क्रम में कितने अक्षर हैं?

Ans
✗ 1. 4
✗ 2. 6
✓ 3. 3
✗ 4. 2

Question ID : **441009760044**
Option 1 ID : **4410092994171**
Option 2 ID : **4410092994172**
Option 3 ID : **4410092994169**
Option 4 ID : **4410092994170**

Q.2 शब्द ABDOMEN में प्रत्येक स्वर को अंग्रेजी वर्णमाला क्रम में उसके ठीक बाद वाले अक्षर से बदल दिया जाता है और प्रत्येक व्यंजन को अंग्रेजी वर्णमाला क्रम में उसके ठीक पहले वाले अक्षर से बदल दिया जाता है। निम्नलिखित में से कौन-सा अक्षर इस प्रकार बने अक्षरों के नए समूह में बाएँ से चौथा होगा?405

Ans
✓ 1. P
✗ 2. A
✗ 3. C
✗ 4. B

Question ID : **441009754777**
Option 1 ID : **4410092973101**
Option 2 ID : **4410092973103**
Option 3 ID : **4410092973104**
Option 4 ID : **4410092973102**

QuickSarkari.com | WhatsApp Channel | Telegram: t.me/quick_sarkari

Q.3 A, B, C, D, E और F एक गोल मेज के परितः केंद्र की ओर अभिमुख होकर बैठे हैं। D के बाएं से गिनने पर, E और D के बीच केवल तीन व्यक्ति बैठे हैं। F, E के ठीक दाएं पड़ोस में बैठा है। B, F का निकटतम पड़ोसी नहीं है। A, B के बाएं से दूसरे स्थान पर बैठा है। D के ठीक दाएं पड़ोस में कौन बैठा है?

Ans
✔ 1. B
✘ 2. C
✘ 3. E
✘ 4. A

Question ID : **441009757981**
Option 1 ID : **4410092985918**
Option 2 ID : **4410092985919**
Option 3 ID : **4410092985920**
Option 4 ID : **4410092985917**

Q.4 C, B का पिता है। B, D की माता है। D, E का पुत्र है। F, E का पिता है। C का F से क्या संबंध है? 6219

Ans
✘ 1. पुत्र की पत्नी का भाई
✔ 2. पुत्र की पत्नी का पिता
✘ 3. भाई
✘ 4. पिता

Question ID : **441009760443**
Option 1 ID : **4410092995768**
Option 2 ID : **4410092995767**
Option 3 ID : **4410092995766**
Option 4 ID : **4410092995765**

Q.5 यदि शब्द BLASTED के प्रत्येक अक्षर को अंग्रेजी वर्णमाला क्रम में व्यवस्थित किया जाए, तो कितने अक्षरों का स्थान अपरिवर्तित रहेगा?

Ans
✘ 1. 1
✔ 2. 0
✘ 3. 3
✘ 4. 2

Question ID : **441009363153**
Option 1 ID : **4410091418868**
Option 2 ID : **4410091418867**
Option 3 ID : **4410091418870**
Option 4 ID : **4410091418869**

QuickSarkari.com | WhatsApp Channel | Telegram: t.me/quick_sarkari

Q.6 उत्तर दिशा की ओर अभिमुख होकर बैठे लोगों की एक पंक्ति में, निशा बाएं छोर से 21वें स्थान पर है। उषा बाएं छोर से 12वें स्थान पर है। निशा और दिनेश के ठीक बीच में उषा है। यदि दिनेश पंक्ति के दाएं छोर से 24वें स्थान पर है, तो पंक्ति में कितने लोग हैं?

Ans
✗ 1. 30
✗ 2. 29
✓ 3. 26
✗ 4. 33

Question ID : **441009759766**
Option 1 ID : **4410092993060**
Option 2 ID : **4410092993057**
Option 3 ID : **4410092993059**
Option 4 ID : **4410092993058**

Q.7 उत्तर दिशा की ओर अभिमुख होकर बैठे लोगों की एक पंक्ति में, अनिल दाएं छोर से 23वें स्थान पर है। प्रियांक दाएं छोर से 12वें स्थान पर है। अनिल और पूर्वा के ठीक बीच में प्रियांक है। यदि पूर्वा पंक्ति के बाएं छोर से 27वें स्थान पर है, तो पंक्ति में कितने लोग हैं?

Ans
✗ 1. 28
✗ 2. 31
✓ 3. 27
✗ 4. 32

Question ID : **441009759767**
Option 1 ID : **4410092993061**
Option 2 ID : **4410092993064**
Option 3 ID : **4410092993062**
Option 4 ID : **4410092993063**

Q.8 एक निश्चित कूट भाषा में, 'jar gum chest' को 'ur hd xv' के रूप में कूटबद्ध किया जाता है और 'woman jar youth' को 'hd ho du' के रूप में कूटबद्ध किया जाता है। दी गई भाषा में 'jar' को किस प्रकार कूटबद्ध किया जाएगा?
5424

Ans
✓ 1. hd
✗ 2. xv
✗ 3. ho
✗ 4. ur

Question ID : **441009759649**
Option 1 ID : **4410092992589**
Option 2 ID : **4410092992591**
Option 3 ID : **4410092992592**
Option 4 ID : **4410092992590**

Q.9 किसी निश्चित कूट भाषा में IVFM को 16-3-19-12 के रूप में कूटबद्ध किया गया है और SAND को 6-24-11-21 के रूप में कूटबद्ध किया गया है। दी गई भाषा में QSLX का कूट क्या होगा?

Ans
✔ 1. 8-6-13-1
✘ 2. 10-8-14-2
✘ 3. 9-4-12-2
✘ 4. 9-5-13-3

Question ID : **441009754779**
Option 1 ID : **4410092973111**
Option 2 ID : **4410092973109**
Option 3 ID : **4410092973110**
Option 4 ID : **4410092973112**

Q.10 C, B का पिता है। B, D का पिता है। D, E का पुत्र है। F, E की माता है। C का F से क्या संबंध है? 6217

Ans
✘ 1. पुत्री के पति का भाई
✘ 2. पिता
✔ 3. पुत्री के पति का पिता
✘ 4. भाई

Question ID : **441009760441**
Option 1 ID : **4410092995758**
Option 2 ID : **4410092995759**
Option 3 ID : **4410092995757**
Option 4 ID : **4410092995760**

Q.11 केतन बिंदु Y से चलना शुरू करता है और पश्चिम की ओर 25 km ड्राइव करता है। फिर वह बाएं मुड़ता है, 59 km ड्राइव करता है, फिर बाएं मुड़ता है और 21 km ड्राइव करता है। फिर वह बाएं मुड़ता है और 46 km ड्राइव करता है। फिर वह बाएं मुड़ता है और 48 km ड्राइव करता है। फिर वह दाएं मुड़ता है, 13 km ड्राइव करता है, फिर बाएं मुड़ता है और बिंदु Z पर रुकने के लिए 41 km ड्राइव करता है। बिंदु Y पर फिर से पहुंचने के लिए उसे कितनी दूर (निकटतम दूरी) और किस दिशा में ड्राइव करना चाहिए? (सभी मोड़ केवल 90-डिग्री मोड़ हैं, जब तक कि निर्दिष्ट न किया गया हो।)

Ans
✔ 1. 93 km, पूर्व की ओर
✘ 2. 84 km, पूर्व की ओर
✘ 3. 96 km,पश्चिम की ओर
✘ 4. 88 km, पश्चिम की ओर

Question ID : **441009754601**
Option 1 ID : **4410092972398**
Option 2 ID : **4410092972399**
Option 3 ID : **4410092972400**
Option 4 ID : **4410092972397**

Q.12 सात डिब्बे I, J, K, L, M, N और T एक के ऊपर एक रखे गए हैं, लेकिन जरूरी नहीं कि इसी क्रम में रखे गए हों। K के नीचे केवल दो डिब्बे रखे गए हैं। K और M के बीच केवल दो डिब्बे रखे गए हैं। M और T के बीच केवल एक डिब्बा रखा गया है। I को L के ठीक ऊपर रखा गया है। N को J के नीचे किसी स्थान पर रखा गया है। J और I के बीच कितने डिब्बे रखे गए हैं?

Ans
✗ 1. एक
✓ 2. चार
✗ 3. दो
✗ 4. तीन

Question ID : **441009760091**
Option 1 ID : **4410092994360**
Option 2 ID : **4410092994357**
Option 3 ID : **4410092994359**
Option 4 ID : **4410092994358**

Q.13 एक निश्चित कूट भाषा में, 'SOUL' को '3729' के रूप में कूटबद्ध किया जाता है और 'LOST' को '9238' के रूप में कूटबद्ध किया जाता है। दी गई कूट भाषा में 'U' के लिए कूट क्या है?

Ans
✗ 1. 8
✗ 2. 3
✓ 3. 7
✗ 4. 9

Question ID : **441009756209**
Option 1 ID : **4410092978830**
Option 2 ID : **4410092978831**
Option 3 ID : **4410092978829**
Option 4 ID : **4410092978832**

Q.14 A, B, C, D, E, F और G एक गोल मेज के परित: केंद्र की ओर अभिमुख होकर बैठे हैं। C के बाएं से गिनने पर G और C के बीच केवल दो लोग बैठे हैं। D, B के बाएं तीसरे स्थान पर बैठा है। E, B के ठीक दाएं बैठा है। E, G के बाएं दूसरे स्थान पर बैठा है। F, D का निकटतम पड़ोसी है। C के दाएं से गिनने पर A और C के बीच कितने लोग बैठे हैं?

Ans
✗ 1. 4
✗ 2. 3
✗ 3. 1
✓ 4. 2

Question ID : **441009363166**
Option 1 ID : **4410091418922**
Option 2 ID : **4410091418921**
Option 3 ID : **4410091418919**
Option 4 ID : **4410091418920**

Q.15 संख्याओं/प्रतीकों के एक समूह को नीचे दिए गए कूट और उसके बाद दिए गई स्थितियों के अनुसार अक्षर कूट का उपयोग करके कूटबद्ध किया जाता है। यदि कोई भी स्थिति लागू नहीं होती है, तो तालिका में दिए गए अनुसार संबंधित संख्या/प्रतीक के लिए कूटों का प्रत्यक्ष रूप से अनुसरण किया जाएगा।

संख्या/प्रतीक	?	!	/	=	*	+	-	>	{	#	2	5	7	9
कूट	M	P	T	X	Z	B	Y	W	L	C	A	N	K	J

स्थितियाँ:
(i) यदि पहला अवयव एक प्रतीक है और अंतिम अवयव एक संख्या है, तो इन दोनों (पहले और अंतिम अवयव) के कूट को आपस में बदला जाना है।
(ii) यदि पहला अवयव एक विषम संख्या है और अंतिम अवयव एक सम संख्या है, तो पहले और अंतिम तत्व को © के रूप में कूटबद्ध किया जाना चाहिए।
(iii) यदि पहला अवयव एक प्रतीक है और तीसरा अवयव एक विषम संख्या है, तो पहले और दूसरे कूट को आपस में बदल दिया जाएगा और तीसरे और चौथे कूट को आपस में बदल दिया जाएगा।

निम्नलिखित समूह के लिए कूट क्या होगा?
= 2 7 #

Ans
✔ 1. AXCK
✘ 2. CKXA
✘ 3. XAKC
✘ 4. AKXC

Question ID : **441009754920**
Option 1 ID : **4410092973674**
Option 2 ID : **4410092973675**
Option 3 ID : **4410092973673**
Option 4 ID : **4410092973676**

Q.16 यदि शब्द JUMPER के प्रत्येक अक्षर को वर्णमाला क्रम में व्यवस्थित किया जाए, तो कितने अक्षरों की स्थिति अपरिवर्तित रहेगी?

Ans
✘ 1. तीन
✔ 2. दो
✘ 3. एक
✘ 4. एक की भी नहीं

Question ID : **441009759146**
Option 1 ID : **4410092990580**
Option 2 ID : **4410092990579**
Option 3 ID : **4410092990578**
Option 4 ID : **4410092990577**

QuickSarkari.com | WhatsApp Channel | Telegram: t.me/quick_sarkari

Q.17 अन्विता अपने कॉलेज चलना शुरू करते हुए पश्चिम की ओर 170 m चली। फिर वह दाएँ मुड़कर 120 m चली उसके बाद बाएँ मुड़कर 270 m चली। अंत में वह बाएँ मुड़कर 120 m चलने के बाद अपने घर पहुँच जाती है। कॉलेज से उसका घर कितनी दूर (सबसे छोटी दूरी) है?

(सभी मोड़ केवल 90° के मोड़ हैं जब तक कि निर्दिष्ट न किया गया हो।)

Ans
✗ 1. 400 m
✗ 2. 270 m
✓ 3. 440 m
✗ 4. 390 m

Question ID : **441009756086**
Option 1 ID : **4410092978340**
Option 2 ID : **4410092978337**
Option 3 ID : **4410092978338**
Option 4 ID : **4410092978339**

Q.18 दिए गए कथनों और निष्कर्षों को ध्यानपूर्वक पढ़ें। यह मानते हुए कि कथनों में दी गई जानकारी सत्य है, भले ही वह सामान्यतः ज्ञात तथ्यों से भिन्न प्रतीत होती हो, तय करें कि दिए गए निष्कर्षों में से कौन-सा/से निष्कर्ष कथनों का तार्किक रूप से अनुसरण करता है/करते हैं।

कथन:
I. कुछ कक्षाएं, प्रशिक्षण हैं।
II. कुछ प्रशिक्षण, अभ्यास हैं।

निष्कर्ष:
I. कुछ कक्षाएँ, अभ्यास हैं।
II. सभी अभ्यास, प्रशिक्षण हैं।

Ans
✗ 1. केवल निष्कर्ष I अनुसरण करता है।
✗ 2. केवल निष्कर्ष II अनुसरण करता है।
✓ 3. न तो निष्कर्ष I और न ही II अनुसरण करता है।
✗ 4. निष्कर्ष I और II दोनों अनुसरण करते हैं।

Question ID : **441009363217**
Option 1 ID : **4410091419123**
Option 2 ID : **4410091419124**
Option 3 ID : **4410091419126**
Option 4 ID : **4410091419125**

Q.19 निम्नलिखित श्रृंखला का संदर्भ लें और नीचे दिए गए प्रश्न का उत्तर दें (सभी संख्याएँ केवल एकल अंकीय संख्याएँ हैं)। गिनती केवल बाएँ से दाएँ की जानी है।
(बाएँ) 4 9 7 4 1 3 3 1 2 7 4 4 2 8 2 7 9 7 7 6 4 8 3 6 1 8 7 (दाएँ)
ऐसी कितनी विषम संख्याएँ हैं, जिनमें से प्रत्येक के ठीक पहले एक विषम संख्या तथा ठीक बाद एक अन्य विषम संख्या है?

Ans
✗ 1. 7
✓ 2. 4
✗ 3. 6
✗ 4. 5

Question ID : **441009762164**
Option 1 ID : **4410093002651**
Option 2 ID : **4410093002649**
Option 3 ID : **4410093002652**
Option 4 ID : **4410093002650**

QuickSarkari.com | WhatsApp Channel | Telegram: t.me/quick_sarkari

Q.20 यदि शब्द GRANTED के प्रत्येक अक्षर को वर्णमाला क्रम में व्यवस्थित किया जाए, तो कितने अक्षरों की स्थिति अपरिवर्तित रहेगी?

Ans
✗ 1. दो
✗ 2. तीन
✓ 3. एक की भी नहीं
✗ 4. एक

Question ID : **441009759147**
Option 1 ID : **4410092990583**
Option 2 ID : **4410092990584**
Option 3 ID : **4410092990581**
Option 4 ID : **4410092990582**

Section : **General intelligence and Reasoning Ability1**

Q.1 अक्षरों की स्थिति के पुनर्व्यवस्था के आधार पर एक निश्चित तरीके से MIXER का संबंध EIMRX से है। इसी प्रकार, PITCH का संबंध CIPHT से है। उसी तर्क का पालन करते हुए, TRUNK का संबंध निम्नलिखित में से किससे है?

Ans
✗ 1. NKUTR
✓ 2. NRTKU
✗ 3. KNRTU
✗ 4. UTRNK

Question ID : **441009754595**
Option 1 ID : **4410092972374**
Option 2 ID : **4410092972373**
Option 3 ID : **4410092972375**
Option 4 ID : **4410092972376**

Q.2 दिए गए कथनों और निष्कर्षों का ध्यानपूर्वक अध्ययन कीजिए। यह मानते हुए कि कथनों में दी गई जानकारी सत्य है, भले ही वह सामान्य रूप से ज्ञात तथ्यों से भिन्न प्रतीत होती हो, तय कीजिए कि दिए गए निष्कर्षों में से कौन-सा, कथनों का तार्किक रूप से अनुसरण करता है।

कथन:
कोई पक्षी, मछली नहीं है।
सभी मछली, सरीसृप हैं।

निष्कर्ष:
(I) कोई पक्षी, सरीसृप नहीं है।
(II) कुछ सरीसृप, मछली हैं।

Ans
✗ 1. निष्कर्ष (I) और (II) दोनों अनुसरण करते हैं।
✓ 2. केवल निष्कर्ष (II) अनुसरण करता है।
✗ 3. केवल निष्कर्ष (I) अनुसरण करता है।
✗ 4. न तो निष्कर्ष (I) और न ही (II) अनुसरण करता है।

Question ID : **441009766338**
Option 1 ID : **4410093019348**
Option 2 ID : **4410093019346**
Option 3 ID : **4410093019345**
Option 4 ID : **4410093019347**

Q.3 अंग्रेजी वर्णमाला क्रम के आधार पर, निम्नलिखित चार अक्षर-समूह युग्मों में से तीन एक निश्चित तरीके से एकसमान हैं और इस प्रकार एक ग्रुप बनाते हैं। कौन-सा अक्षर-समूह युग्म, उस ग्रुप से संबंधित नहीं है?
(नोट: असंगत अक्षर-समूह युग्म, व्यंजनों/स्वरों की संख्या या उनकी स्थिति पर आधारित नहीं है।)

Ans
✔ 1. CT – GP
✘ 2. WV – AT
✘ 3. LY – PW
✘ 4. QI – UG

Question ID : **441009755776**
Option 1 ID : **4410092977098**
Option 2 ID : **4410092977099**
Option 3 ID : **4410092977097**
Option 4 ID : **4410092977100**

Q.4 अंग्रेजी वर्णमाला क्रम पर आधारित, निम्नलिखित चार अक्षर-समूहों में से तीन एक निश्चित तरीके से समान हैं और इस प्रकार एक ग्रुप बनाते हैं। कौन-सा अक्षर-समूह उस ग्रुप से संबंधित नहीं है?
(नोट: असंगत अक्षर समूह, व्यंजनों/स्वरों की संख्या या उनकी स्थिति पर आधारित नहीं है।)

Ans
✘ 1. CWQ
✘ 2. BVP
✘ 3. AUO
✔ 4. DXM

Question ID : **441009754440**
Option 1 ID : **4410092971755**
Option 2 ID : **4410092971754**
Option 3 ID : **4410092971753**
Option 4 ID : **4410092971756**

Q.5 यदि 'A' का अर्थ '÷' है, 'B' का अर्थ '×' है, 'C' का अर्थ '+' है और 'D' का अर्थ '−' है, तो निम्नलिखित समीकरण में प्रश्न-चिह्न (?) के स्थान पर क्या आएगा?

28 C 9 D 4 B 12 A 2 = ?

Ans
✔ 1. 13
✘ 2. 14
✘ 3. 27
✘ 4. 31

Question ID : **441009514572**
Option 1 ID : **4410092013620**
Option 2 ID : **4410092013618**
Option 3 ID : **4410092013619**
Option 4 ID : **4410092013621**

QuickSarkari.com | WhatsApp Channel | Telegram: t.me/quick_sarkari

Q.6 अंग्रेजी वर्णमाला क्रम के आधार पर, निम्नलिखित चार अक्षर-समूह युग्मों में से तीन एक निश्चित तरीके से एकसमान हैं और इस प्रकार वे एक ग्रुप बनाते हैं। कौन-सा अक्षर-समूह युग्म उस ग्रुप से संबंधित नहीं है? (नोट: असंगत अक्षर-समूह युग्म, व्यंजनों/स्वरों की संख्या या उनकी स्थिति पर आधारित नहीं है।)

Ans
✗ 1. FC-AH
✗ 2. JG-EL
✗ 3. PM-KR
✓ 4. LI-GM

Question ID : **441009363148**
Option 1 ID : **4410091418849**
Option 2 ID : **4410091418848**
Option 3 ID : **4410091418850**
Option 4 ID : **4410091418847**

Q.7 दी गई श्रृंखला में प्रश्न-चिन्ह (?) के स्थान पर क्या आना चाहिए?

58, 71, ?, 109, 134, 163

Ans
✗ 1. 96
✗ 2. 82
✓ 3. 88
✗ 4. 78

Question ID : **441009514468**
Option 1 ID : **4410092013203**
Option 2 ID : **4410092013202**
Option 3 ID : **4410092013205**
Option 4 ID : **4410092013204**

Q.8 उस युग्म का चयन करें, जो नीचे दिए गए युग्मों के समान पैटर्न का अनुसरण करता है। दोनों युग्म समान पैटर्न का अनुसरण करते हैं।

OMU : UIS
NQR : TMP

Ans
✗ 1. HRT : HNQ
✗ 2. KSN : POM
✓ 3. MHP : SDN
✗ 4. LQI : PMH

Question ID : **441009744620**
Option 1 ID : **4410092932237**
Option 2 ID : **4410092932236**
Option 3 ID : **4410092932238**
Option 4 ID : **4410092932239**

QuickSarkari.com | WhatsApp Channel | Telegram: t.me/quick_sarkari

Q.9 यदि संख्या 32167854 में प्रत्येक विषम अंक में 1 जोड़ा जाए तथा प्रत्येक सम अंक में से 2 घटाया जाए, तो इस प्रकार बनने वाली नई संख्या के सबसे छोटे तथा सबसे बड़े अंकों का योगफल कितना होगा?

Ans
✔ 1. 8
✘ 2. 7
✘ 3. 9
✘ 4. 6

Question ID : **441009526382**
Option 1 ID : **4410092060932**
Option 2 ID : **4410092060934**
Option 3 ID : **4410092060935**
Option 4 ID : **4410092060933**

Q.10 अंग्रेजी वर्णमाला क्रम के आधार पर एक निश्चित तरीके से EBDF का संबंध KHJL से है। उसी तरीके से GDFH का संबंध MJLN से है। उसी तर्क का अनुसरण करते हुए, IFHJ का संबंध निम्नलिखित में से किससे है?

Ans
✘ 1. OLPN
✔ 2. OLNP
✘ 3. LONP
✘ 4. LOPN

Question ID : **441009756244**
Option 1 ID : **4410092978970**
Option 2 ID : **4410092978969**
Option 3 ID : **4410092978971**
Option 4 ID : **4410092978972**

Q.11 जब दर्पण को नीचे दर्शाए अनुसार MN पर रखा जाता है, तो दी गई आकृति के सही दर्पण प्रतिबिंब का चयन कीजिए।



Ans
✔ 1. 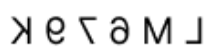
✘ 2. 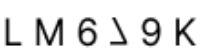
✘ 3. 
✘ 4. 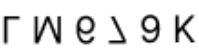

Question ID : **441009368683**
Option 1 ID : **4410091440705**
Option 2 ID : **4410091440708**
Option 3 ID : **4410091440707**
Option 4 ID : **4410091440706**

QuickSarkari.com | WhatsApp Channel | Telegram: t.me/quick_sarkari

Q.12 दी गई श्रृंखला में प्रश्न-चिन्ह (?) के स्थान पर क्या आना चाहिए?

63 88 104 113 117 ?

Ans
✗ 1. 115
✗ 2. 114
✗ 3. 116
✓ 4. 118

Question ID : **441009514466**
Option 1 ID : **4410092013195**
Option 2 ID : **4410092013196**
Option 3 ID : **4410092013194**
Option 4 ID : **4410092013197**

Q.13 निम्नलिखित समीकरण को संतुलित करने के लिए किन दो संख्याओं और दो चिह्नों को परस्पर बदलना होगा?

15 × 6 + 2 ÷ 3 − 18 = 25

Ans
✗ 1. 6 और 18, − और +
✗ 2. 6 और 15, × और +
✗ 3. 2 और 6, − और +
✓ 4. 2 और 15, − और +

Question ID : **441009514636**
Option 1 ID : **4410092013877**
Option 2 ID : **4410092013876**
Option 3 ID : **4410092013874**
Option 4 ID : **4410092013875**

Q.14 निम्नलिखित संख्या युग्मों में, पहली संख्या पर कुछ गणितीय संक्रियाएँ करके दूसरी संख्या प्राप्त की जाती है। X और Y को किस संख्या से प्रतिस्थापित किया जाना चाहिए ताकि :: के बाईं ओर की दो संख्याओं द्वारा अनुसरण किया जाने वाला पैटर्न :: के दाईं ओर की दो संख्याओं द्वारा अनुसरण किया जाने वाले पैटर्न के समान हो?

(नोट: संख्याओं को उनके घटक अंकों में तोड़े बिना, संक्रियाएँ पूर्ण संख्याओं पर की जानी चाहिए। उदाहरण के लिए 13 को लीजिए - 13 पर संक्रियाएँ जैसे कि 13 में जोड़ना/घटाना/गुणा करना आदि किया जा सकता है। 13 को 1 एवं 3 में तोड़ना और फिर 1 एवं 3 पर गणितीय संक्रियाएँ करने की अनुमति नहीं है।)

X : 30 :: 20 : Y410

Ans
✗ 1. X = 15, Y = 45
✓ 2. X = 5, Y = 45
✗ 3. X = 10, Y = 35
✗ 4. X = 10, Y = 45

Question ID : **441009590432**
Option 1 ID : **4410092316841**
Option 2 ID : **4410092316843**
Option 3 ID : **4410092316844**
Option 4 ID : **4410092316842**

Q.15 यदि '÷' और '–' को आपस में बदल दिया जाए तथा '×' और '+' को आपस में बदल दिया जाए, तो निम्नलिखित समीकरण में प्रश्न-चिह्न (?) के स्थान पर क्या आएगा?

9 × 13 + 36 – 18 ÷ 6 = ?

Ans
✗ 1. −106
✗ 2. 36
✗ 3. −76
✓ 4. 29

Question ID : **441009527877**
Option 1 ID : **4410092066912**
Option 2 ID : **4410092066913**
Option 3 ID : **4410092066915**
Option 4 ID : **4410092066914**

Q.16 दी गई श्रृंखला में प्रश्न-चिन्ह (?) के स्थान पर क्या आना चाहिए?

34 41 52 65 82 ?

Ans
✓ 1. 101
✗ 2. 103
✗ 3. 111
✗ 4. 99

Question ID : **441009514467**
Option 1 ID : **4410092013198**
Option 2 ID : **4410092013199**
Option 3 ID : **4410092013200**
Option 4 ID : **4410092013201**

Q.17 निम्नलिखित संख्या-युग्मों में, पहली संख्या पर कुछ गणितीय संक्रियाएँ करके दूसरी संख्या प्राप्त की जाती है। उस समुच्चय का चयन करें जिसमें संख्याएँ उसी तरह से संबंधित हैं जैसे कि निम्नलिखित समुच्चयों की संख्याएँ संबंधित हैं।

(नोट: संख्याओं को उनके घटक अंकों में तोड़े बिना, संक्रियाएँ पूर्ण संख्याओं पर की जानी चाहिए। उदाहरण के लिए 13 को लीजिए - 13 पर संक्रियाएँ जैसे कि 13 में जोड़ना/घटाना/गुणा करना आदि किया जा सकता है। 13 को 1 एवं 3 में तोड़ना और फिर 1 एवं 3 पर गणितीय संक्रियाएँ करने की अनुमति नहीं है।)

24, 96
33, 132

Ans
✗ 1. 28, 122
✓ 2. 56, 224
✗ 3. 31, 128
✗ 4. 48, 182

Question ID : **441009526385**
Option 1 ID : **4410092060945**
Option 2 ID : **4410092060947**
Option 3 ID : **4410092060946**
Option 4 ID : **4410092060944**

Q.18 निम्नलिखित संख्या युग्मों में, पहली संख्या पर कुछ गणितीय संक्रियाएँ करके दूसरी संख्या प्राप्त की जाती है। X और Y को किस संख्या से प्रतिस्थापित किया जाना चाहिए ताकि :: के बाईं ओर की दो संख्याओं द्वारा अनुसरण किया जाने वाला पैटर्न :: के दाईं ओर की दो संख्याओं द्वारा अनुसरण किया जाने वाले पैटर्न के समान हो?

(नोट: संख्याओं को उनके घटक अंकों में तोड़े बिना, संक्रियाएँ पूर्ण संख्याओं पर की जानी चाहिए। उदाहरण के लिए 13 को लीजिए - 13 पर संक्रियाएँ जैसे कि 13 में जोड़ना/घटाना/गुणा करना आदि किया जा सकता है। 13 को 1 एवं 3 में तोड़ना और फिर 1 एवं 3 पर गणितीय संक्रियाएँ करने की अनुमति नहीं है।)

X : 108 :: 14 : Y

Ans
1. X = 9, Y = 176
2. X = 11, Y = 136
3. X = 9, Y = 168
4. X = 12, Y = 196

Question ID : **441009527233**
Option 1 ID : **4410092064339**
Option 2 ID : **4410092064336**
Option 3 ID : **4410092064338**
Option 4 ID : **4410092064337**

QuickSarkari.com | WhatsApp Channel | Telegram: t.me/quick_sarkari

Q.19 उस विकल्प आकृति का चयन कीजिए, जिसमें दी गई आकृति उसके भाग के रूप में अंतर्निहित है। (घूमाने की अनुमति नहीं है)।



Ans

✗ 1.

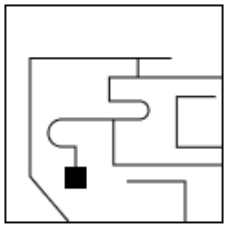

✗ 2.

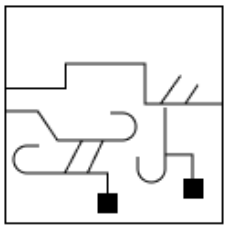

✓ 3.

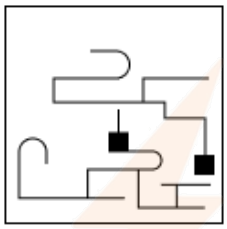

✗ 4.

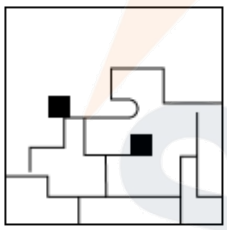

Question ID : **441009864668**
Option 1 ID : **4410093411772**
Option 2 ID : **4410093411775**
Option 3 ID : **4410093411774**
Option 4 ID : **4410093411773**

Q.20 संख्या 49218576 में प्रत्येक अंक को बाएं से दाएं अवरोही क्रम में व्यवस्थित किया जाता है। इस प्रकार बनी संख्या में बाएं से दूसरे और दाएं से तीसरे अंक का गुणनफल कितना होगा?

Ans
✗ 1. 28
✗ 2. 40
✗ 3. 16
✓ 4. 32

Question ID : **441009528365**
Option 1 ID : **4410092068865**
Option 2 ID : **4410092068864**
Option 3 ID : **4410092068867**
Option 4 ID : **4410092068866**

Section : **General Awareness**

Q.1 दिसंबर 2024 में, किस भारतीय शतरंज ग्रैंडमास्टर ने इंडोनेशिया की आइरीन सुकंदर (Irene Sukandar) को हराकर वर्ल्ड रैपिड चेस चैंपियनशिप का खिताब जीता?

Ans
✔ 1. कोनेरू हम्पी (Koneru Humpy)
✘ 2. गुकेश डोम्माराजू (Gukesh Dommaraju)
✘ 3. पेंटाला हरिकृष्णा (Pentala Harikrishna)
✘ 4. रमेशबाबू प्रज्ञानन्द (Rameshbabu Praggnanandhaa)

Question ID : **441009630050**
Option 1 ID : **4410092474347**
Option 2 ID : **4410092474348**
Option 3 ID : **4410092474350**
Option 4 ID : **4410092474349**

Q.2 मार्च 2025 में, देश भर में 31,600 उम्मीदवारों को लाभान्वित करने वाले PM VIKAS के अंतर्गत नए कार्यक्रम को लागू करने के लिए किस संगठन का चयन किया गया था?

Ans
✔ 1. दिल्ली सिख गुरुद्वारा प्रबंधक कमेटी
✘ 2. राष्ट्रीय अल्पसंख्यक विकास एवं वित्त निगम
✘ 3. राष्ट्रीय अल्पसंख्यक आयोग
✘ 4. कौशल विकास एवं उद्यमिता मंत्रालय

Question ID : **441009134158**
Option 1 ID : **441009533302**
Option 2 ID : **441009533304**
Option 3 ID : **441009533305**
Option 4 ID : **441009533303**

Q.3 भारत सरकार के वित्त मंत्रालय के अनुसार, 14 अगस्त 2024 तक देश में प्रधानमंत्री जन धन योजना (PMJDY) में कुल जमा राशि कितनी थी?

Ans
✘ 1. ₹1,31,236 करोड़
✘ 2. ₹4,31,236 करोड़
✔ 3. ₹2,31,236 करोड़
✘ 4. ₹3,31,236 करोड़

Question ID : **441009629537**
Option 1 ID : **4410092472295**
Option 2 ID : **4410092472298**
Option 3 ID : **4410092472296**
Option 4 ID : **4410092472297**

Q.4 दिसंबर 2024 में भारत के सर्वोच्च न्यायालय ने युवाओं के संबंध में क्या चिंता व्यक्त की?

Ans
✘ 1. साइबर धमकी की बढ़ती घटनाएं
✘ 2. साक्षरता दर में गिरावट
✘ 3. बढ़ती बेरोजगारी दर
✔ 4. नशीली दवाओं का अवैध व्यापार और ड्रग्स का सेवन

Question ID : **441009134078**
Option 1 ID : **441009532986**
Option 2 ID : **441009532985**
Option 3 ID : **441009532987**
Option 4 ID : **441009532988**

Q.5 30 नवंबर से 4 दिसंबर 2024 तक 10वां भारत अंतर्राष्ट्रीय विज्ञान महोत्सव (IISF) निम्नलिखित में से किस संस्थान में आयोजित किया गया था?

Ans
✗ 1. IIT रुड़की
✗ 2. IIT कानपुर
✓ 3. IIT गुवाहाटी
✗ 4. IIT पटना

Question ID : **441009630816**
Option 1 ID : **4410092477411**
Option 2 ID : **4410092477414**
Option 3 ID : **4410092477412**
Option 4 ID : **4410092477413**

Q.6 1851 में, पारसी सामाजिक रीति-रिवाजों के आधुनिकीकरण की वकालत करने के लिए निम्नलिखित में से किसकी शुरुआत की गई/किसका गठन किया गया था?

Ans
✓ 1. रहनुमाई मज़्दायासन सभा
✗ 2. पारसी पंचायत सुधार
✗ 3. पारसी लॉ एसोसिएशन
✗ 4. जोरास्ट्रियन सुधार आंदोलन

Question ID : **441009631218**
Option 1 ID : **4410092479015**
Option 2 ID : **4410092479018**
Option 3 ID : **4410092479017**
Option 4 ID : **4410092479016**

Q.7 भारतीय औद्योगिक विकास बैंक (IDBI) की स्थापना किस वर्ष की गई थी?

Ans
✓ 1. 1964
✗ 2. 1975
✗ 3. 1960
✗ 4. 1970

Question ID : **441009138003**
Option 1 ID : **441009548241**
Option 2 ID : **441009548243**
Option 3 ID : **441009548240**
Option 4 ID : **441009548242**

Q.8 1866 में भारतवर्षीय ब्रह्म समाज की स्थापना किसने की?

Ans
✗ 1. राजा राम मोहन राय
✓ 2. केशव चंदर सेन
✗ 3. रामचन्द्र परमहंस
✗ 4. स्वामी विवेकानंद

Question ID : **441009631221**
Option 1 ID : **4410092479028**
Option 2 ID : **4410092479027**
Option 3 ID : **4410092479030**
Option 4 ID : **4410092479029**

Q.9 महात्मा गांधी ने सविनय अवज्ञा आंदोलन किस वर्ष शुरू किया था?

Ans
✗ 1. 1932
✗ 2. 1938
✓ 3. 1930
✗ 4. 1936

Question ID : **441009631220**
Option 1 ID : **4410092479024**
Option 2 ID : **4410092479026**
Option 3 ID : **4410092479023**
Option 4 ID : **4410092479025**

Q.10 निम्नलिखित में से किस व्यक्ति ने 1897 में पूना में दो ब्रिटिश अधिकारियों की हत्या की थी?

Ans
✗ 1. मदन लाल ढींगरा और वीडी सावरकर
✓ 2. दामोदर और बालकृष्ण चापेकर
✗ 3. खुदीराम बोस और प्रफुल्ल चाकी
✗ 4. रासबिहारी बोस और बारिन घोष

Question ID : **441009631378**
Option 1 ID : **4410092479656**
Option 2 ID : **4410092479657**
Option 3 ID : **4410092479655**
Option 4 ID : **4410092479658**

Q.11 भारतीय वित्तीय संस्थाओं के संदर्भ में SIDBI का पूर्ण रूप क्या है?

Ans
✗ 1. State Investment and Development Bank of India (स्टेट इन्वेस्टमेंट एंड डेवलपमेंट बैंक ऑफ इंडिया)
✗ 2. Society for Industrial Development and Banking Initiatives (सोसाइटी फॉर इंडस्ट्रियल डेवलपमेंट एंड बैंकिंग इनिशिएटिव्स)
✓ 3. Small Industries Development Bank of India (स्मॉल इंडस्ट्रीज डेवलपमेंट बैंक ऑफ इंडिया)
✗ 4. Small Infrastructure and Development Bank of India (स्मॉल इंफ्रास्ट्रक्चर एंड डेवलपमेंट बैंक ऑफ इंडिया)

Question ID : **441009138004**
Option 1 ID : **441009548244**
Option 2 ID : **441009548245**
Option 3 ID : **441009548246**
Option 4 ID : **441009548247**

Q.12 निम्नलिखित में से कौन 'की टू हेल्थ' और 'रामनामा' जैसी पुस्तकों के लेखक हैं?

Ans
✗ 1. रामचंद्र शुक्ला
✓ 2. महात्मा गांधी
✗ 3. एडवर्ड जेनर
✗ 4. बी.सी. रॉय

Question ID : **441009631294**
Option 1 ID : **4410092479322**
Option 2 ID : **4410092479319**
Option 3 ID : **4410092479321**
Option 4 ID : **4410092479320**

Q.13 निम्नलिखित में से कौन-सी भाषा, भारत सरकार द्वारा मान्यता प्राप्त 'शास्त्रीय भाषाओं' में से एक नहीं है?

Ans
✗ 1. कन्नड़
✓ 2. भोजपुरी
✗ 3. संस्कृत
✗ 4. मलयालम

Question ID : **44100969138**
Option 1 ID : **441009275184**
Option 2 ID : **441009275181**
Option 3 ID : **441009275182**
Option 4 ID : **441009275183**

Q.14 लागत फलन $C = 5 + 4Q - 3Q^2 + 0.03Q^3$ में, सीमांत लागत का मान क्या होगा?

Ans
✓ 1. $4 - 6Q + .09Q^2$
✗ 2. $4 - 6Q + .09Q$
✗ 3. $4 + 6Q - .09Q^2$
✗ 4. $6Q + .09Q^2$

Question ID : **441009610221**
Option 1 ID : **4410092396001**
Option 2 ID : **4410092396004**
Option 3 ID : **4410092396002**
Option 4 ID : **4410092396003**

Q.15 जुलाई 2024 में, भारतीय रेलवे द्वारा लॉन्च किए गए रेल-मदद (RailMadad) शिकायत पोर्टल के बहुभाषी संस्करण की मुख्य विशेषता क्या थी?

Ans
✗ 1. यह टिकट पूछताछ के लिए केवल अंग्रेजी को सपोर्ट करता है।
✓ 2. इसमें भाषिणी की पाठ्य और वाक् पहचान तकनीक शामिल है।
✗ 3. यह रेलवे कर्मचारियों को अपने प्रशासकों के साथ किसी भी भाषा में संवाद करने की सुविधा देता है।
✗ 4. यह केवल ट्रेन की देरी से संबंधित शिकायतों का समाधान करता है।

Question ID : **441009630743**
Option 1 ID : **4410092477119**
Option 2 ID : **4410092477120**
Option 3 ID : **4410092477122**
Option 4 ID : **4410092477121**

Q.16 जनवरी 2025 में, अंतर्राष्ट्रीय क्रिकेट परिषद (ICC) द्वारा घोषित पुरुष टेस्ट बॉलिंग रैंकिंग में कौन-सा भारतीय खिलाड़ी प्रथम स्थान पर रहा?

Ans
✗ 1. मोहम्मद सिराज
✓ 2. जसप्रीत बुमराह
✗ 3. अर्शदीप सिंह
✗ 4. रवींद्र जडेजा

Question ID : **441009629584**
Option 1 ID : **4410092472486**
Option 2 ID : **4410092472484**
Option 3 ID : **4410092472485**
Option 4 ID : **4410092472483**

Q.17 मार्च 2025 में अंतर्राष्ट्रीय महिला दिवस पर प्रधानमंत्री श्री नरेंद्र मोदी की यात्रा के दौरान गुजरात ने किस महत्वपूर्ण पहल को लागू किया?

Ans
✗ 1. महिलाओं की सुरक्षा के लिए नया ऐप लॉन्च किया गया
✗ 2. महिला सुरक्षा हेल्पलाइन की स्थापना की गई
✓ 3. पूर्णतः महिला पुलिस सुरक्षा दल तैनात किया गया
✗ 4. नए महिला सुरक्षा कोष की घोषणा की गई

Question ID : **441009134256**
Option 1 ID : **441009533695**
Option 2 ID : **441009533697**
Option 3 ID : **441009533694**
Option 4 ID : **441009533696**

Q.18 भारत में दूरसंचार क्षेत्र की अग्रणी कंपनी रिलायंस जियो ने डेटा ट्रैफ़िक खपत के मामले में निम्नलिखित में से किस देश की दूरसंचार कंपनी को पीछे छोड़ते हुए दुनिया की सबसे बड़ी मोबाइल ऑपरेटर कंपनी बन गई है?

Ans
✓ 1. चीन
✗ 2. दक्षिण कोरिया
✗ 3. अमेरिका
✗ 4. जापान

Question ID : **441009379212**
Option 1 ID : **4410091482674**
Option 2 ID : **4410091482676**
Option 3 ID : **4410091482673**
Option 4 ID : **4410091482675**

Q.19 राष्ट्रीय आय खातों में पूंजीगत वस्तुओं को _____ के रूप में वर्गीकृत किया जाता है।

Ans
✗ 1. नव उत्पादित वस्तुओं (newly produced goods)
✓ 2. अंतिम वस्तुओं (final goods)
✗ 3. मध्यवर्ती वस्तुओं (intermediate goods)
✗ 4. इन्वेंटरी वस्तुओं (inventory goods)

Question ID : **441009510577**
Option 1 ID : **4410091997466**
Option 2 ID : **4410091997469**
Option 3 ID : **4410091997467**
Option 4 ID : **4410091997468**

Q.20 नवंबर 2024 में, अंतर्राष्ट्रीय शतरंज महासंघ द्वारा रैंक किया गया सबसे कम आयु का रेटेड शतरंज खिलाड़ी कौन बना?

Ans
✗ 1. तेजस तिवारी
✗ 2. अर्जुन एरिगैसी
✗ 3. किरण कुमार
✓ 4. अनीश सरकार

Question ID : **441009629738**
Option 1 ID : **4410092473099**
Option 2 ID : **4410092473101**
Option 3 ID : **4410092473102**
Option 4 ID : **4410092473100**

Section : **General Awareness1**

Q.1 निम्नलिखित में से कौन-सी नदी पश्चिम की ओर बहती है और ज्वारनदमुख (estuaries) बनाती है?

Ans
✔ 1. तापी
✘ 2. गंगा
✘ 3. कावेरी
✘ 4. महानदी

Question ID : **441009637659**
Option 1 ID : **4410092504781**
Option 2 ID : **4410092504780**
Option 3 ID : **4410092504779**
Option 4 ID : **4410092504782**

Q.2 भारतीय संविधान के 69$^{वें}$ संशोधन अधिनियम, _____ के अनुसार, केंद्र शासित प्रदेश दिल्ली को राष्ट्रीय राजधानी क्षेत्र दिल्ली कहा जाएगा।

Ans
✘ 1. 1978
✘ 2. 1983
✘ 3. 1956
✔ 4. 1991

Question ID : **441009635156**
Option 1 ID : **4410092494772**
Option 2 ID : **4410092494773**
Option 3 ID : **4410092494771**
Option 4 ID : **4410092494774**

Q.3 DNA के संबंध में निम्नलिखित में से कौन-से कथन सत्य हैं?
A. DNA का पूर्ण रूप Deoxyribonucleic Acid (डीऑक्सीराइबोन्यूक्लिक एसिड) है।
B. किसी कोशिका में गुणसूत्रों के एक पूर्ण समुच्चय (सभी जीन और DNA के अन्य भाग सहित) में सभी DNA पदार्थों के संग्रह को लक्षण प्ररूप (phenotype) कहा जाता है।

Ans
✔ 1. केवल A
✘ 2. न तो A और न ही B
✘ 3. केवल B
✘ 4. A और B दोनों

Question ID : **441009615224**
Option 1 ID : **4410092415065**
Option 2 ID : **4410092415068**
Option 3 ID : **4410092415066**
Option 4 ID : **4410092415067**

QuickSarkari.com | WhatsApp Channel | Telegram: t.me/quick_sarkari

Q.4 तीन पुस्तकों का संकलन 'अकबरनामा' जिसमें राजा अकबर के जीवन का वर्णन और मुगल चित्रकारी को सम्मिलित किया गया है, निम्नलिखित में से किस व्यक्तित्व द्वारा रचित है?

Ans
✗ 1. कौटिल्य
✓ 2. अबुल फ़ज़ल
✗ 3. बदुर फज्र
✗ 4. इब्न बतूता

Question ID : **441009606368**
Option 1 ID : **4410092380590**
Option 2 ID : **4410092380589**
Option 3 ID : **4410092380592**
Option 4 ID : **4410092380591**

Q.5 केंद्रक के भीतर न्यूक्लिक अम्ल, हिस्टोन प्रोटीन के साथ संयोजित होकर _____ बनाते हैं।

Ans
✓ 1. क्रोमैटिन (chromatin)
✗ 2. तारककाय (centrosome)
✗ 3. राइबोसोम (ribosome)
✗ 4. केंद्रिका (nucleolus)

Question ID : **441009509167**
Option 1 ID : **4410091991827**
Option 2 ID : **4410091991829**
Option 3 ID : **4410091991826**
Option 4 ID : **4410091991828**

Q.6 'बाली यात्रा' निम्नलिखित में से किस राज्य का प्रमुख त्योहार है?

Ans
✓ 1. ओडिशा
✗ 2. राजस्थान
✗ 3. त्रिपुरा
✗ 4. पंजाब

Question ID : **441009606190**
Option 1 ID : **4410092379878**
Option 2 ID : **4410092379880**
Option 3 ID : **4410092379877**
Option 4 ID : **4410092379879**

Q.7 निम्नलिखित में से किस कारण से, भारत के शहरी क्षेत्रों की तुलना में ग्रामीण क्षेत्रों में स्व-रोजगार वाले व्यक्तियों की हिस्सेदारी अधिक है?

Ans
✗ 1. ग्रामीण क्षेत्रों में नियमित वेतन वाली नौकरियों की सीमित उपलब्धता
✗ 2. ग्रामीण क्षेत्रों में विकसित औद्योगिक उद्यम
✗ 3. ग्रामीण क्षेत्रों में उच्च साक्षरता दर
✓ 4. कृषि और पशुपालन में स्वामित्व और भागीदारी

Question ID : **441009636596**
Option 1 ID : **4410092500528**
Option 2 ID : **4410092500530**
Option 3 ID : **4410092500527**
Option 4 ID : **4410092500529**

Q.8 नीति आयोग में केंद्रीय मंत्रिपरिषद से पदेन सदस्यों की अधिकतम संख्या कितनी है?

Ans
✗ 1. छह
✗ 2. दो
✓ 3. चार
✗ 4. आठ

Question ID : **441009501623**
Option 1 ID : **4410091961664**
Option 2 ID : **4410091961662**
Option 3 ID : **4410091961663**
Option 4 ID : **4410091961665**

Q.9 केल्विन चक्र के संबंध में निम्नलिखित में से कौन-सा कथन गलत है?

Ans
✗ 1. शर्करा संश्लेषित होती है।
✓ 2. यह C_3 मार्ग या C_4 मार्ग होने पर प्रभावित होता है।
✗ 3. यह तीन चरणों में होता है - कार्बोक्सिलीकरण, अपचयन और पुनर्जनन।
✗ 4. यह सभी प्रकाशसंश्लेषी पादपों में पाया जाता है।

Question ID : **441009615206**
Option 1 ID : **4410092414996**
Option 2 ID : **4410092414995**
Option 3 ID : **4410092414994**
Option 4 ID : **4410092414993**

Q.10 पादप कोशिकाओं में हरितलवक का क्या कार्य है?

Ans
✗ 1. लिपिड संश्लेषण करना
✗ 2. कोशिकीय श्वसन करना
✗ 3. प्रोटीन संश्लेषण करना
✓ 4. प्रकाश संश्लेषण करना

Question ID : **441009367384**
Option 1 ID : **4410091435493**
Option 2 ID : **4410091435492**
Option 3 ID : **4410091435490**
Option 4 ID : **4410091435491**

Q.11 निम्नलिखित में से किस मौलिक कर्तव्य में यह उल्लेख किया गया है कि माता-पिता या संरक्षक को अपने बच्चे या प्रतिपाल्य को 6 से 14 वर्ष की आयु के बीच शिक्षा के अवसर प्रदान करने चाहिए?

Ans
✗ 1. अनुच्छेद 51A(d)
✗ 2. अनुच्छेद 51A(c)
✓ 3. अनुच्छेद 51A(k)
✗ 4. अनुच्छेद 51A(e)

Question ID : **441009377327**
Option 1 ID : **4410091474709**
Option 2 ID : **4410091474707**
Option 3 ID : **4410091474706**
Option 4 ID : **4410091474708**

QuickSarkari.com | WhatsApp Channel | Telegram: t.me/quick_sarkari

Q.12 कानूनी दस्तावेज के रूप में सर्वाधिक प्रसिद्ध वह प्राचीन संस्कृत ग्रंथ कौन-सा है, जिसे दूसरी शताब्दी ईसा पूर्व और दूसरी शताब्दी ईस्वी के बीच संकलित किया गया था?

Ans
✗ 1. सामवेद
✓ 2. मनुस्मृति
✗ 3. अथर्ववेद
✗ 4. ऋग्वेद

Question ID : **441009606353**
Option 1 ID : **4410092380530**
Option 2 ID : **4410092380532**
Option 3 ID : **4410092380529**
Option 4 ID : **4410092380531**

Q.13 हिमालय की बाह्यतम पर्वतमाला को क्या कहा जाता है?

Ans
✗ 1. हिमाद्रि
✓ 2. शिवालिक
✗ 3. महाभारत
✗ 4. हिमाचल

Question ID : **441009636476**
Option 1 ID : **4410092500047**
Option 2 ID : **4410092500049**
Option 3 ID : **4410092500050**
Option 4 ID : **4410092500048**

Q.14 निम्नलिखित में से कौन-सा न्यायालय, किसी जिले में आपराधिक मामलों के लिए सर्वोच्च होता है और गंभीर अपराधों के लिए मजिस्ट्रेट द्वारा भेजे गए अभियुक्तों पर मुकदमा चलाता है?

Ans
✓ 1. सत्र न्यायालय
✗ 2. उच्च न्यायालय
✗ 3. जिला न्यायाधीश न्यायालय
✗ 4. पारिवारिक न्यायालय

Question ID : **441009501918**
Option 1 ID : **4410091962843**
Option 2 ID : **4410091962845**
Option 3 ID : **4410091962842**
Option 4 ID : **4410091962844**

Q.15 सिक्किम की प्रमुख भाषा निम्नलिखित में से कौन-सी है?

Ans
✗ 1. निशी
✗ 2. आओ
✓ 3. नेपाली
✗ 4. हिंदी

Question ID : **441009605679**
Option 1 ID : **4410092377835**
Option 2 ID : **4410092377836**
Option 3 ID : **4410092377834**
Option 4 ID : **4410092377833**

QuickSarkari.com | WhatsApp Channel | Telegram: t.me/quick_sarkari

Q.16 कांटेदार वन और झाड़ियां भारत के निम्नलिखित में से किस भाग में अधिकांशतः पाई जाती हैं?

Ans
✗ 1. पश्चिमी घाट और अंडमान द्वीप समूह में
✗ 2. हिमालय के उच्च ऊंचाई वाले क्षेत्रों में
✗ 3. हिमालय की तलहटी और पूर्वोत्तर भारत में
✓ 4. उत्तर-पश्चिमी भारत में

Question ID : **441009636438**
Option 1 ID : **4410092499897**
Option 2 ID : **4410092499895**
Option 3 ID : **4410092499898**
Option 4 ID : **4410092499896**

Q.17 आवधिक श्रम बल सर्वेक्षण (PLFS) के अनुसार, जुलाई 2023 से जून 2024 की अवधि के लिए, निम्नलिखित में से किस भारतीय राज्य/केंद्र शासित प्रदेश ने 15 से 29 वर्ष की आयु के लोगों में सर्वाधिक बेरोजगारी दर दर्ज की?

Ans
✗ 1. हरियाणा
✓ 2. लक्षद्वीप
✗ 3. अंडमान और निकोबार द्वीप समूह
✗ 4. सिक्किम

Question ID : **441009636599**
Option 1 ID : **4410092500539**
Option 2 ID : **4410092500540**
Option 3 ID : **4410092500541**
Option 4 ID : **4410092500542**

Q.18 भारत के संविधान के किस अनुच्छेद के अनुसार, सर्वोच्च न्यायालय और प्रत्येक उच्च न्यायालय में सभी कार्यवाही अंग्रेजी भाषा में होगी?

Ans
✗ 1. अनुच्छेद 343
✗ 2. अनुच्छेद 349
✓ 3. अनुच्छेद 348(1)(a)
✗ 4. अनुच्छेद 352

Question ID : **441009605605**
Option 1 ID : **4410092377538**
Option 2 ID : **4410092377539**
Option 3 ID : **4410092377537**
Option 4 ID : **4410092377540**

Q.19 मानव श्वसन तंत्र की कूपिका (alveoli) में, हीमोग्लोबिन के साथ O_2 का बंधन _____ के कारण होता है।

Ans
✓ 1. कूपिका में O_2 के आंशिक दाब
✗ 2. कूपिका में CO_2 की सांद्रता
✗ 3. कूपिका में अम्लीयता
✗ 4. कूपिका में तापमान

Question ID : **441009509297**
Option 1 ID : **4410091992347**
Option 2 ID : **4410091992348**
Option 3 ID : **4410091992346**
Option 4 ID : **4410091992349**

Q.20 6 से 14 वर्ष की आयु के बच्चों को शिक्षा के अवसर प्रदान करने का कर्तव्य किस संशोधन अधिनियम द्वारा जोड़ा गया?

Ans
✗ 1. 74वें संशोधन
✗ 2. 42वें संशोधन
✓ 3. 86वें संशोधन
✗ 4. 44वें संशोधन

Question ID : **441009501595**
Option 1 ID : **4410091961552**
Option 2 ID : **4410091961550**
Option 3 ID : **4410091961553**
Option 4 ID : **4410091961551**

Section : **Arithmetical and Numerical Ability**

Q.1 14864 में कौन-सी सबसे छोटी संख्या जोड़ी जाए कि योगफल, 32 से पूर्णतः विभाज्य हो जाए?

Ans
✗ 1. 21
✗ 2. 15
✗ 3. 14
✓ 4. 16

Question ID : **441009533855**
Option 1 ID : **4410092090817**
Option 2 ID : **4410092090819**
Option 3 ID : **4410092090818**
Option 4 ID : **4410092090816**

Q.2 एक टेस्ट में, अधिकतम 120 अंकों में से B को 66 अंक मिले जबकि A को 80 अंक मिले। B के अंकों का लगभग कितना प्रतिशत A के अंक थे?

Ans
✗ 1. 120%
✓ 2. 121.21%
✗ 3. 82.5%
✗ 4. 66.67%

Question ID : **441009364430**
Option 1 ID : **4410091423972**
Option 2 ID : **4410091423970**
Option 3 ID : **4410091423971**
Option 4 ID : **4410091423973**

QuickSarkari.com | WhatsApp Channel | Telegram: t.me/quick_sarkari

Q.3 यदि किसी निश्चित धनराशि पर, 6% वार्षिक दर से 10 वर्ष का साधारण ब्याज ₹735 है, तो वह धनराशि (₹ में) ज्ञात कीजिए।

Ans
✗ 1. 1,228
✓ 2. 1,225
✗ 3. 1,224
✗ 4. 1,222

Question ID : **441009544256**
Option 1 ID : **4410092132421**
Option 2 ID : **4410092132420**
Option 3 ID : **4410092132423**
Option 4 ID : **4410092132422**

Q.4 एक पंसारी को क्रमशः ₹208 और ₹273 प्रति kg मूल्य वाले दो प्रकार के चावल को किस अनुपात में मिश्रित करना चाहिए, ताकि ₹257 प्रति kg मूल्य वाला चावल का मिश्रण प्राप्त हो?

Ans
✗ 1. 13 : 27
✗ 2. 9 : 25
✓ 3. 16 : 49
✗ 4. 16 : 39

Question ID : **441009539665**
Option 1 ID : **4410092114059**
Option 2 ID : **4410092114057**
Option 3 ID : **4410092114056**
Option 4 ID : **4410092114058**

Q.5 ₹10,00,000 मूल्य वाली एक कार का 20% वार्षिक दर से मूल्यह्रास हो रहा है। कितने वर्षों में इसका मूल्य घटकर ₹5,12,000 हो जाएगा?

Ans
✗ 1. 4
✗ 2. 2
✓ 3. 3
✗ 4. 6

Question ID : **441009542505**
Option 1 ID : **4410092125419**
Option 2 ID : **4410092125418**
Option 3 ID : **4410092125417**
Option 4 ID : **4410092125416**

QuickSarkari.com | WhatsApp Channel | Telegram: t.me/quick_sarkari

Q.6 5 लीटर दूध और जल के मिश्रण में 20% जल है, तथा 8 लीटर मात्रा वाले जल और दूध के दूसरे मिश्रण में प्रत्येक लीटर जल के लिए, 3 लीटर दूध है। दोनों मिश्रण को मिलाया गया है। नये मिश्रण में दूध का प्रतिशत ज्ञात कीजिए। (दशमलव के दो स्थान तक पूर्णांकित करें)

Ans
✗ 1. 72.29%
✗ 2. 78.92%
✗ 3. 74.69%
✓ 4. 76.92%

Question ID : **441009364354**
Option 1 ID : **4410091423666**
Option 2 ID : **4410091423669**
Option 3 ID : **4410091423667**
Option 4 ID : **4410091423668**

Q.7 यदि किसी निश्चित धनराशि पर 8% वार्षिक दर से 2 वर्ष का साधारण ब्याज ₹852 है, तो वह धनराशि (₹ में) ज्ञात कीजिए।

Ans
✗ 1. 5,323
✗ 2. 5,324
✓ 3. 5,325
✗ 4. 5,327

Question ID : **441009544260**
Option 1 ID : **4410092132437**
Option 2 ID : **4410092132439**
Option 3 ID : **4410092132436**
Option 4 ID : **4410092132438**

Q.8 एक कस्बे की वर्तमान जनसंख्या 12,500 है। दो क्रमिक वर्षों में इसमें 65% और 23% की वृद्धि होती है, लेकिन तीसरे वर्ष में 68% की कमी होती है। तीसरे वर्ष के अंत में कस्बे की जनसंख्या कितनी है?

Ans
✗ 1. 8119
✓ 2. 8118
✗ 3. 8114
✗ 4. 8115

Question ID : **441009537231**
Option 1 ID : **4410092104321**
Option 2 ID : **4410092104320**
Option 3 ID : **4410092104322**
Option 4 ID : **4410092104323**

Q.9 3 + (−60) ÷ (−12) + (−4) × 4 का मान ज्ञात कीजिए।5160

Ans
✗ 1. −10
✓ 2. −8
✗ 3. −11
✗ 4. −7

Question ID : **441009521444**
Option 1 ID : **4410092041196**
Option 2 ID : **4410092041195**
Option 3 ID : **4410092041197**
Option 4 ID : **4410092041198**

Q.10 एक कस्बे की वर्तमान जनसंख्या 17,120 है। दो क्रमिक वर्षों में इसमें 10% और 25% की वृद्धि होती है, लेकिन तीसरे वर्ष में 40% की कमी होती है। तीसरे वर्ष के अंत में कस्बे की जनसंख्या कितनी है?

Ans
✗ 1. 14,126
✗ 2. 14,128
✗ 3. 14,122
✓ 4. 14,124

Question ID : **441009537230**
Option 1 ID : **4410092104319**
Option 2 ID : **4410092104318**
Option 3 ID : **4410092104317**
Option 4 ID : **4410092104316**

Q.11 नीचे दी गई तालिका उन व्यक्तियों की संख्या दर्शाती है जिन्होंने संगीत की अपनी पसंदीदा शैली के संबंध में एक सर्वेक्षण पर प्रतिक्रिया दी। दी गई जानकारी का अध्ययन कीजिए और निम्नलिखित प्रश्न का उत्तर दीजिए।

आयु	15-20	21-30	31+
क्लासिकल	6	4	7
पॉप	7	5	5
रॉक	6	12	14
जैज़	1	4	11
ब्लूज़	2	3	15
हिप-हॉप	9	3	4
एंबिएंट	4	4	4
कुल	35	35	60

31 वर्ष से कम आयु के कितने प्रतिशत प्रतिक्रिया दाताओं ने बताया कि ब्लूज़ उनकी पसंदीदा संगीत शैली है? (उत्तर को दशमलव के एक स्थान तक पूर्णांकित कीजिए)

Ans
✗ 1. 8.1%
✗ 2. 9.1%
✗ 3. 6.1%
✓ 4. 7.1%

Question ID : **441009542259**
Option 1 ID : **4410092124433**
Option 2 ID : **4410092124434**
Option 3 ID : **4410092124435**
Option 4 ID : **4410092124432**

Q.12 एक कक्षा के 30 विद्यार्थियों ने एक परीक्षा दी। 12 विद्यार्थियों का औसत स्कोर 72 है, और शेष विद्यार्थियों का औसत स्कोर 68 है। कक्षा का औसत स्कोर कितना है?

Ans
✗ 1. 70.6
✗ 2. 68.6
✓ 3. 69.6
✗ 4. 67.6

Question ID : **441009517172**
Option 1 ID : **4410092024109**
Option 2 ID : **4410092024108**
Option 3 ID : **4410092024107**
Option 4 ID : **4410092024110**

Q.13 एक व्यक्ति को एक वस्तु ₹395 में बेचने पर 21% की हानि होती है। यदि वह इसे ₹330 में बेचता है, तो उसका लाभ/हानि प्रतिशत कितना होगा?

Ans
✔ 1. हानि, 34%
✘ 2. हानि, 37%
✘ 3. लाभ, 30%
✘ 4. लाभ, 37%

Question ID : **441009537931**
Option 1 ID : **4410092107120**
Option 2 ID : **4410092107122**
Option 3 ID : **4410092107121**
Option 4 ID : **4410092107123**

Q.14 यदि ₹y की राशि पर वार्षिक रूप से संयोजित होने वाले 5% वार्षिक दर से 2 वर्ष का ब्याज ₹205 है, तो दो वर्ष की अवधि के अंत में देय कुल राशि _____ होगी।

Ans
✘ 1. ₹1,715
✘ 2. ₹2,158
✔ 3. ₹2,205
✘ 4. ₹2,069

Question ID : **441009540539**
Option 1 ID : **4410092117555**
Option 2 ID : **4410092117554**
Option 3 ID : **4410092117552**
Option 4 ID : **4410092117553**

Q.15 एक पंसारी को क्रमशः ₹203 और ₹275 प्रति kg मूल्य वाले दो प्रकार के चावलों को किस अनुपात में मिश्रित करना चाहिए, ताकि ₹222 प्रति kg मूल्य वाला चावल का मिश्रण प्राप्त हो?

Ans
✔ 1. 53 : 19
✘ 2. 55 : 20
✘ 3. 43 : 19
✘ 4. 63 : 24

Question ID : **441009539666**
Option 1 ID : **4410092114060**
Option 2 ID : **4410092114061**
Option 3 ID : **4410092114062**
Option 4 ID : **4410092114063**

Q.16 5^3, 5^7, 5^9 और 5^{11} का महत्तम समापवर्तक ज्ञात कीजिए।

Ans
✔ 1. 125
✘ 2. 5^{11}
✘ 3. 5
✘ 4. 25

Question ID : **441009364530**
Option 1 ID : **4410091424371**
Option 2 ID : **4410091424373**
Option 3 ID : **4410091424370**
Option 4 ID : **4410091424372**

Q.17 जब $x^2 = \{16 \times (64 \div 4) \times 49 \times \frac{1}{7} \div 7\}$ है, तो x का मान ज्ञात कीजिए।

Ans
✗ 1. 42
✗ 2. 21
✗ 3. 35
✓ 4. 16

Question ID : **441009364534**
Option 1 ID : **4410091424389**
Option 2 ID : **4410091424387**
Option 3 ID : **4410091424388**
Option 4 ID : **4410091424386**

Q.18 दिए गए ग्राफ का अध्ययन करें और निम्नलिखित प्रश्न का उत्तर दें।
बार ग्राफ में एक स्कूल की विभिन्न कक्षाओं में विद्यार्थियों की संख्या को दर्शाया गया है।

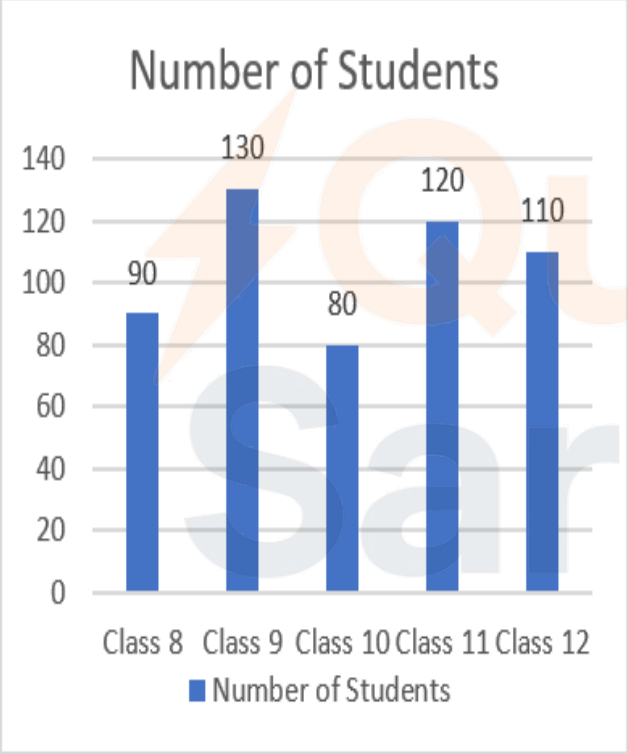

संदर्भ-
number of students - विद्यार्थियों की संख्या, class - कक्षा

कक्षा में विद्यार्थियों की औसत संख्या कितनी है?

Ans
✗ 1. 98
✗ 2. 115
✓ 3. 106
✗ 4. 111

Question ID : **441009623256**
Option 1 ID : **4410092447159**
Option 2 ID : **4410092447158**
Option 3 ID : **4410092447157**
Option 4 ID : **4410092447156**

Q.19 राम की आय, सुरेश की आय से 15% अधिक है। सुरेश की आय, मयंक की आय से 20% कम है। मयंक की आय, राम की आय से कितने (निकटतम पूर्णांक तक पूर्णांकित) प्रतिशत अधिक है?

Ans
✗ 1. 5%
✓ 2. 9%
✗ 3. 11%
✗ 4. 7%

Question ID : **441009133983**
Option 1 ID : **441009532606**
Option 2 ID : **441009532608**
Option 3 ID : **441009532607**
Option 4 ID : **441009532605**

Q.20 एक व्यक्ति को एक वस्तु ₹112 में बेचने पर 36% की हानि होती है। यदि वह उसे ₹182 में बेचता है, तो उसका लाभ/हानि प्रतिशत कितना होगा?

Ans
✗ 1. लाभ, 6%
✓ 2. लाभ, 4%
✗ 3. हानि, 6%
✗ 4. हानि, 1%

Question ID : **441009537930**
Option 1 ID : **4410092107118**
Option 2 ID : **4410092107116**
Option 3 ID : **4410092107119**
Option 4 ID : **4410092107117**

Section : **Arithmetical and Numerical Ability1**

Q.1 A और B ने क्रमशः ₹3,200 और ₹2,400 का निवेश करके एक व्यवसाय शुरू किया। 8 महीने बाद, C भी ₹5,600 का निवेश करके उनके साथ शामिल हो गया। यदि वर्ष के अंत में कुल ₹3,100 का लाभ होता है, तो लाभ में C का हिस्सा (₹ में) कितना होगा?

Ans
✗ 1. 776
✗ 2. 771
✗ 3. 773
✓ 4. 775

Question ID : **441009543147**
Option 1 ID : **4410092127987**
Option 2 ID : **4410092127985**
Option 3 ID : **4410092127986**
Option 4 ID : **4410092127984**

Q.2 एक व्यक्ति एक व्यूपॉइंट तक पैदल जाता है और अपनी कार से नियत चाल बनाए रखते हुए प्रारंभिक बिंदु पर लौट आता है और इस प्रकार उसे कुल 4 घंटे 15 मिनट का समय लगता है। यदि वह दोनों तरफ कार से जाता, तो उसे 2 घंटे कम समय लगता। समान चाल से दोनों तरफ की पैदल यात्रा में उसे कितना समय लगेगा?

Ans
✗ 1. 6 घंटे 45 मिनट
✗ 2. 7 घंटे 30 मिनट
✓ 3. 6 घंटे 15 मिनट
✗ 4. 5 घंटे 15 मिनट

Question ID : **441009549361**
Option 1 ID : **4410092152843**
Option 2 ID : **4410092152841**
Option 3 ID : **4410092152840**
Option 4 ID : **4410092152842**

Q.3 इलेक्ट्रॉनिक वस्तुओं की एक क्लीयरेंस सेल में, एक वस्तु जिसका अंकित मूल्य ₹12,050 था, वह अब ₹10,604 में बेची जाती है, तथा वस्तु पर d% छूट प्रतिशत है। d का मान ज्ञात कीजिए।

Ans
✗ 1. 14%
✗ 2. 13%
✓ 3. 12%
✗ 4. 11%

Question ID : **441009364350**
Option 1 ID : **4410091423653**
Option 2 ID : **4410091423652**
Option 3 ID : **4410091423650**
Option 4 ID : **4410091423651**

Q.4 यदि तीन पाइप M, N और O अकेले टैंक को क्रमशः 30 घंटे, 20 घंटे और 25 घंटे में भर सकते हैं, तो जब तीनों पाइप एक साथ खोले जाते हैं, तो टैंक को पूरी तरह से भरने में लगने वाला समय (घंटे में) ज्ञात कीजिए।

Ans
✓ 1. $8\frac{4}{37}$
✗ 2. $6\frac{7}{37}$
✗ 3. $7\frac{8}{35}$
✗ 4. $8\frac{5}{33}$

Question ID : **441009542404**
Option 1 ID : **4410092125012**
Option 2 ID : **4410092125013**
Option 3 ID : **4410092125015**
Option 4 ID : **4410092125014**

Q.5 44 m कोर वाले एक घन का आयतन (m^3 में) ज्ञात कीजिए।

Ans
✗ 1. 85,229
✓ 2. 85,184
✗ 3. 85,336
✗ 4. 85,166

Question ID : **441009594025**
Option 1 ID : **4410092331218**
Option 2 ID : **4410092331217**
Option 3 ID : **4410092331220**
Option 4 ID : **4410092331219**

Q.6 एक घनाभाकार हॉल की भुजाओं का अनुपात 3 : 4 : 5 है तथा इसका संपूर्ण पृष्ठीय क्षेत्रफल 846 m^2 है। हॉल में रखी जा सकने वाली सबसे लंबी छड़ की लंबाई ज्ञात कीजिए।

Ans
✗ 1. $17\sqrt{3}$ m
✗ 2. $16\sqrt{2}$ m
✗ 3. $14\sqrt{3}$ m
✓ 4. $15\sqrt{2}$ m

Question ID : **441009600025**
Option 1 ID : **4410092355220**
Option 2 ID : **4410092355219**
Option 3 ID : **4410092355217**
Option 4 ID : **4410092355218**

Q.7 एक व्यक्ति एक व्यूपॉइंट तक पैदल जाता है और अपनी कार से नियत चाल बनाए रखते हुए प्रारंभिक बिंदु पर लौट आता है और इस प्रकार उसे कुल 7 घंटे 45 मिनट का समय लगता है। यदि वह दोनों तरफ कार से जाता, तो उसे 4 घंटे कम समय लगता। समान चाल से दोनों तरफ की पैदल यात्रा में उसे कितना समय लगेगा?

Ans
✗ 1. 12 घंटे 15 मिनट
✗ 2. 10 घंटे 45 मिनट
✓ 3. 11 घंटे 45 मिनट
✗ 4. 11 घंटे 30 मिनट

Question ID : **441009549363**
Option 1 ID : **4410092152849**
Option 2 ID : **4410092152850**
Option 3 ID : **4410092152848**
Option 4 ID : **4410092152851**

Q.8 एक टाइपिस्ट को 10 पेज टाइप करने में 40 मिनट लगते हैं। वह 68 मिनट में कितने पेज टाइप कर सकता है?

Ans
✗ 1. 19
✗ 2. 18
✓ 3. 17
✗ 4. 16

Question ID : **441009523079**
Option 1 ID : **4410092047738**
Option 2 ID : **4410092047737**
Option 3 ID : **4410092047735**
Option 4 ID : **4410092047736**

Q.9 162 और 18 का माध्यानुपाती ज्ञात कीजिए।

Ans ✔ 1. 54

✘ 2. 56

✘ 3. 55

✘ 4. 51

Question ID : **441009546640**
Option 1 ID : **4410092141956**
Option 2 ID : **4410092141957**
Option 3 ID : **4410092141959**
Option 4 ID : **4410092141958**

Q.10 70 m व्यास और 9 m ऊंचाई वाले लकड़ी के एक बेलन के वक्र पृष्ठ को ₹12 प्रति m^2 की दर से पॉलिश करने की लागत (₹ में) ज्ञात कीजिए। ($\pi = \frac{22}{7}$ का उपयोग कीजिए)

Ans ✘ 1. 27,360

✔ 2. 23,760

✘ 3. 26,730

✘ 4. 26,370

Question ID : **441009592105**
Option 1 ID : **4410092323537**
Option 2 ID : **4410092323539**
Option 3 ID : **4410092323540**
Option 4 ID : **4410092323538**

Q.11 एक मोटर चालक पहले 16 मिनट तक x km/hr की चाल से चलकर, फिर अगले 23 मिनट तक 2x km/hr की चाल से चलकर और शेष यात्रा पुनः x km/hr की चाल से चलकर, 49 मिनट में 30 km की दूरी तय करता है। x का मान ज्ञात कीजिए।

Ans ✘ 1. 22

✔ 2. 25

✘ 3. 30

✘ 4. 28

Question ID : **441009543091**
Option 1 ID : **4410092127761**
Option 2 ID : **4410092127760**
Option 3 ID : **4410092127763**
Option 4 ID : **4410092127762**

QuickSarkari.com | WhatsApp Channel | Telegram: t.me/quick_sarkari

Q.12 A और B में से प्रत्येक एक कार्य को 13 दिन में पूरा कर सकता है। उन्होंने एक साथ कार्य करना शुरू किया, लेकिन 2 दिन बाद, B को कार्य छोड़ना पड़ा, और A ने शेष कार्य अकेले पूरा किया। पूरा कार्य_____ दिन में पूर्ण हुआ।

Ans
✔ 1. 11
✘ 2. 9
✘ 3. 10
✘ 4. 12

Question ID : **441009519408**
Option 1 ID : **4410092033051**
Option 2 ID : **4410092033052**
Option 3 ID : **4410092033054**
Option 4 ID : **4410092033053**

Q.13 84 और 21 का माध्यानुपाती ज्ञात कीजिए।

Ans
✔ 1. 42
✘ 2. 40
✘ 3. 44
✘ 4. 39

Question ID : **441009546639**
Option 1 ID : **4410092141952**
Option 2 ID : **4410092141953**
Option 3 ID : **4410092141954**
Option 4 ID : **4410092141955**

Q.14 एक खुदरा विक्रेता किसी वस्तु के अंकित मूल्य पर 3% की छूट देता है। यदि वस्तु का क्रय मूल्य ₹776 है और खुदरा विक्रेता 54% का लाभ अर्जित करना चाहता है, तो उसे अंकित मूल्य (₹ में) कितना रखना होगा?

Ans
✔ 1. 1,232
✘ 2. 1,235
✘ 3. 1,234
✘ 4. 1,233

Question ID : **441009563756**
Option 1 ID : **4410092210144**
Option 2 ID : **4410092210147**
Option 3 ID : **4410092210146**
Option 4 ID : **4410092210145**

Q.15 समान MRP वाली एक जैसी वस्तुओं पर '9 की खरीद पर 1 मुफ़्त पाएं' जैसी स्कीम में _____% की छूट मिलती है।

Ans
✘ 1. 11
✘ 2. 11.11
✘ 3. 12.11
✔ 4. 10

Question ID : **441009364349**
Option 1 ID : **4410091423648**
Option 2 ID : **4410091423647**
Option 3 ID : **4410091423649**
Option 4 ID : **4410091423646**

Q.16 एक समांतर चतुर्भुज की भुजाएँ 15 cm और लंबाई 18 cm है। विकर्णों में से एक विकर्ण की लंबाई 21 cm है। समांतर चतुर्भुज का क्षेत्रफल (cm^2 में) ज्ञात कीजिए।

Ans
✗ 1. $96\sqrt{3}$
✗ 2. $120\sqrt{3}$
✓ 3. $108\sqrt{6}$
✗ 4. $72\sqrt{6}$

Question ID : **441009602190**
Option 1 ID : **4410092363878**
Option 2 ID : **4410092363880**
Option 3 ID : **4410092363879**
Option 4 ID : **4410092363877**

Q.17 पाइप X एक टंकी को 18 घंटे में भर सकता है जबकि पाइप Y अकेले इसे 15 घंटे में भर सकता है और पाइप Z पूरी तरह से भरी हुई टंकी को 24 घंटे में खाली कर सकता है। यदि सभी पाइप एक साथ खोल दिए जाएँ, तो टंकी को पूरी तरह से भरने में कितना समय (घंटे में) लगेगा?

Ans
✗ 1. $13\frac{12}{29}$
✗ 2. $11\frac{12}{29}$
✗ 3. $13\frac{11}{27}$
✓ 4. $12\frac{12}{29}$

Question ID : **441009542401**
Option 1 ID : **4410092125001**
Option 2 ID : **4410092125002**
Option 3 ID : **4410092125003**
Option 4 ID : **4410092125000**

Q.18 85 km/hr की चाल से गतिमान ट्रेन P, समांतर पटरियों पर समान दिशा में 66 km/hr की चाल से गतिमान 367 m लंबी ट्रेन Q को 1.5 मिनट में पूरी तरह से पार कर लेती है। P को विपरीत दिशा में 77 km/hr की चाल से गतिमान 387 m लंबी ट्रेन R को पूरी तरह से पार करने में कितना समय (सेकंड में) लगेगा?

Ans
✗ 1. 10
✓ 2. 11
✗ 3. 18
✗ 4. 16

Question ID : **441009544524**
Option 1 ID : **4410092133494**
Option 2 ID : **4410092133492**
Option 3 ID : **4410092133495**
Option 4 ID : **4410092133493**

QuickSarkari.com | WhatsApp Channel | Telegram: t.me/quick_sarkari

Q.19 A ने ₹2,87,000 की पूंजी से एक व्यवसाय शुरू किया। 4 महीने बाद, B एक निश्चित पूंजी के साथ उसके साथ व्यवसाय में सम्मिलित हो गया। A के व्यवसाय के एक वर्ष के अंत में, लाभ 4 : 1 के अनुपात में साझा किया गया। B ने कितना (₹ में) निवेश किया था?

Ans
✗ 1. 1,06,400
✗ 2. 1,07,300
✓ 3. 1,07,625
✗ 4. 1,16,900

Question ID : **441009364341**
Option 1 ID : **4410091423617**
Option 2 ID : **4410091423615**
Option 3 ID : **4410091423614**
Option 4 ID : **4410091423616**

Q.20 35 पुस्तकों का विक्रय मूल्य, 28 पुस्तकों के क्रय मूल्य के बराबर है। हानि या लाभ प्रतिशत ज्ञात कीजिए।

Ans
✗ 1. 25% हानि
✓ 2. 20% हानि
✗ 3. 25% लाभ
✗ 4. 20% लाभ

Question ID : **441009623010**
Option 1 ID : **4410092446173**
Option 2 ID : **4410092446172**
Option 3 ID : **4410092446175**
Option 4 ID : **4410092446174**

Section : **Test of English Language and Comprehension**

Q.1 Select the most appropriate option that rectifies the grammatical error(s) in the given sentence.

The professor is known with his eccentric teaching style and vivid examples.

Ans
✗ 1. The professor is known by his eccentric teaching style and vivid examples.
✗ 2. The professor is known to his eccentric teaching style and vivid examples.
✓ 3. The professor is known for his eccentric teaching style and vivid examples.
✗ 4. The professor is known of his eccentric teaching style and vivid examples.

Question ID : **441009480205**
Option 1 ID : **4410091876169**
Option 2 ID : **4410091876170**
Option 3 ID : **4410091876172**
Option 4 ID : **4410091876171**

QuickSarkari.com | WhatsApp Channel | Telegram: t.me/quick_sarkari

Q.2 Sentences of a paragraph are given below in jumbled order. Arrange the sentences in the correct order to form a meaningful and coherent paragraph.

1. The example he gave stated the ancestors of giraffes might have adapted to a shortage of food from short trees by stretching their necks to reach higher branches.
2. He was a French mathematician who believed that organisms changed over time by adapting to the environments of their geographical locations.
3. Scientists who studied adaptation prior to the development of evolutionary theory included Georges Louis Leclerc, Comte de Buffon.
4. However, it was Darwin's concept of natural selection, wherein favourable traits like a long neck in giraffes survived not because of acquired skills, but because only giraffes that had long enough necks to feed themselves survived long enough to reproduce.
5. Another French thinker, Jean Baptiste Lamarck, proposed that animals could adapt, pass on their adaptations to their offspring, and therefore evolve.
6. In Lamarck's thinking, the offspring of a giraffe that stretched its neck would then inherit a slightly longer neck.
7. Lamarck theorised that behaviors acquired in a giraffe's lifetime would affect its offspring.

Ans
✗ 1. 3, 6, 5, 2, 7, 4, 1
✗ 2. 6, 7, 4, 3, 2, 1, 5
✓ 3. 3, 2, 5, 1, 6, 7, 4
✗ 4. 4, 6, 1, 2, 7, 3, 5

Question ID : **441009366599**
Option 1 ID : **4410091432560**
Option 2 ID : **4410091432561**
Option 3 ID : **4410091432559**
Option 4 ID : **4410091432558**

Q.3 Select the most appropriate option to fill in the blanks.

No action or instruction _____ be permanent which _____ not based on reason and morality.

Ans
✗ 1. shall; are
✗ 2. can; were
✗ 3. is; was
✓ 4. can; is

Question ID : **441009498251**
Option 1 ID : **4410091948219**
Option 2 ID : **4410091948217**
Option 3 ID : **4410091948218**
Option 4 ID : **4410091948216**

Q.4 Select the most appropriate adverb to fill in the blank.

After a long day, Emma _____ chose to relax and read a book instead of starting another project.

Ans
✗ 1. blindly
✗ 2. enthusiastically
✓ 3. sensibly
✗ 4. gracefully

Question ID : **441009481892**
Option 1 ID : **4410091882919**
Option 2 ID : **4410091882918**
Option 3 ID : **4410091882920**
Option 4 ID : **4410091882917**

Q.5 **Select the most appropriate adjective to fill in the blank.**
The historical documentary was criticised for being _____, as it presented a narrow and somewhat biased view of the events without addressing broader contexts.

Ans
✔ 1. selective
✘ 2. selective more
✘ 3. more selective
✘ 4. most selective

Question ID : **441009484626**
Option 1 ID : **4410091893853**
Option 2 ID : **4410091893855**
Option 3 ID : **4410091893854**
Option 4 ID : **4410091893856**

Q.6 **Select the most appropriate option that rectifies the highlighted segment in the given sentence.**

The journalist was broken the story before it could be officially confirmed.

Ans
✘ 1. broke
✘ 2. have broken
✘ 3. was breaking
✔ 4. had broken

Question ID : **441009480280**
Option 1 ID : **4410091876471**
Option 2 ID : **4410091876470**
Option 3 ID : **4410091876472**
Option 4 ID : **4410091876469**

Q.7 **Select the most appropriate option to fill in the blank.**

A company's success depends largely _____ the dedication and teamwork of its employees.

Ans
✘ 1. in
✔ 2. on
✘ 3. with
✘ 4. by

Question ID : **441009495288**
Option 1 ID : **4410091936364**
Option 2 ID : **4410091936367**
Option 3 ID : **4410091936365**
Option 4 ID : **4410091936366**

QuickSarkari.com | WhatsApp Channel | Telegram: t.me/quick_sarkari

Q.8 **Sentences of a paragraph are given below in jumbled order. Arrange the sentences in the correct order to form a meaningful and coherent paragraph.**

A. The invention of the wheel marked a turning point in human history.
B. Over time, wheels evolved to support various technologies.
C. Early wheels were made of wood and used in carts.
D. It revolutionised transport and machinery.
E. Today, they are crucial in automobiles.

Ans
✔ 1. ADCBE
✘ 2. CABED
✘ 3. BDCAE
✘ 4. ABEDC

Question ID : **441009366602**
Option 1 ID : **4410091432572**
Option 2 ID : **4410091432573**
Option 3 ID : **4410091432571**
Option 4 ID : **4410091432570**

Q.9 **Select the most appropriate article to fill in the blank. If no article is needed, select 'No article required'.**

Ramya kept __ pen on her table.

Ans
✘ 1. the
✘ 2. No article required
✔ 3. a
✘ 4. an

Question ID : **441009484503**
Option 1 ID : **4410091893363**
Option 2 ID : **4410091893364**
Option 3 ID : **4410091893361**
Option 4 ID : **4410091893362**

Q.10 **Select the most appropriate meaning of the given proverb.**

An idle brain is devil's workshop

Ans
✔ 1. If you've nothing to do, you'll likely think of mischief
✘ 2. An idle person thinks of his pending work
✘ 3. Devils disturb the active people
✘ 4. Idle person likes devils

Question ID : **441009412332**
Option 1 ID : **4410091614721**
Option 2 ID : **4410091614720**
Option 3 ID : **4410091614719**
Option 4 ID : **4410091614718**

QuickSarkari.com | WhatsApp Channel | Telegram: t.me/quick_sarkari

Q.11 Select the most appropriate adjective to fill in the blank.

Mr. Aravind, the scientist, conducted _____ research in the field of biochemistry.

Ans
✗ 1. charmed
✓ 2. groundbreaking
✗ 3. carefree
✗ 4. large

Question ID : **441009481888**
Option 1 ID : **4410091882902**
Option 2 ID : **4410091882901**
Option 3 ID : **4410091882903**
Option 4 ID : **4410091882904**

Q.12 Select the most appropriate article to fill in the blank. Select 'No article required' if no article is required in the blank.

_____ red car standing in the parking area belongs to my cousin, Neeta.

Ans
✗ 1. An
✗ 2. No article required
✗ 3. A
✓ 4. The

Question ID : **441009366343**
Option 1 ID : **4410091431535**
Option 2 ID : **4410091431537**
Option 3 ID : **4410091431534**
Option 4 ID : **4410091431536**

Q.13 Select the most appropriate option to fill in the blank.
The _____ storm, which raged throughout the night, left behind a trail of uprooted trees and damaged homes.

Ans
✗ 1. sombre
✓ 2. fierce
✗ 3. calm
✗ 4. mild

Question ID : **441009484431**
Option 1 ID : **4410091893075**
Option 2 ID : **4410091893073**
Option 3 ID : **4410091893076**
Option 4 ID : **4410091893074**

QuickSarkari.com | WhatsApp Channel | Telegram: t.me/quick_sarkari

Q.14 Select the most appropriate article to fill in the blank. If no article is needed, select 'No article required'.

_____ understanding of the human psyche is crucial for developing effective psychological therapies.

Ans
✗ 1. A
✗ 2. No article required
✓ 3. The
✗ 4. An

Question ID : **441009484460**
Option 1 ID : **4410091893189**
Option 2 ID : **4410091893192**
Option 3 ID : **4410091893191**
Option 4 ID : **4410091893190**

Q.15 Select the most appropriate article to fill in the blank. Select 'No article required' if no article is required in the blank.

_____ phone rang just as I was leaving.

Ans
✓ 1. The
✗ 2. An
✗ 3. No article required
✗ 4. A

Question ID : **441009366344**
Option 1 ID : **4410091431540**
Option 2 ID : **4410091431539**
Option 3 ID : **4410091431541**
Option 4 ID : **4410091431538**

QuickSarkari.com | WhatsApp Channel | Telegram: t.me/quick_sarkari

Comprehension:

Read the given passage and answer the questions that follow.

Lakme India, one of the leading cosmetic brands in the country, has an interesting origin story tied to the post-independence era. In the early 1950s, India was still a young nation finding its footing in various industries. At that time, Indian women primarily used imported beauty products, which were both expensive and difficult to obtain. Recognising the need for affordable and locally made cosmetics, the then Prime Minister of India, Jawaharlal Nehru, approached the Tata Group to create a domestic beauty brand that could meet the needs of Indian women.

In response, the Tata Group launched Lakmé in 1952, named after the French opera 'Lakmé', which was inspired by the Indian goddess Lakshmi, symbolising beauty and prosperity. Lakmé became the first Indian cosmetics brand to offer a wide range of skincare and makeup products specifically designed for Indian skin tones and preferences. The brand quickly gained popularity, as it provided high-quality beauty products at a price point accessible to the average Indian consumer.

Under the leadership of Simone Tata, who played a key role in shaping the brand's identity, Lakmé expanded its product range and became a household name in India. In 1996, the Tata Group sold its stake in Lakmé to Hindustan Unilever, ensuring the brand's continued growth and presence in the Indian market. Today, Lakmé remains a symbol of Indian beauty and innovation, continuing to cater to the evolving needs of modern women across the country.

SubQuestion No : 16

Q.16 Why was there a need for a domestic beauty brand in India in the 1950s?

Ans

✗ 1. Indian products were inferior.

✗ 2. India wanted to start a fashion industry.

✗ 3. Indian women preferred foreign brands.

✓ 4. Imported products were too expensive.

Question ID : **441009366773**
Option 1 ID : **4410091433249**
Option 2 ID : **4410091433248**
Option 3 ID : **4410091433247**
Option 4 ID : **4410091433246**

QuickSarkari.com | WhatsApp Channel | Telegram: t.me/quick_sarkari

Comprehension:

Read the given passage and answer the questions that follow.

Lakme India, one of the leading cosmetic brands in the country, has an interesting origin story tied to the post-independence era. In the early 1950s, India was still a young nation finding its footing in various industries. At that time, Indian women primarily used imported beauty products, which were both expensive and difficult to obtain. Recognising the need for affordable and locally made cosmetics, the then Prime Minister of India, Jawaharlal Nehru, approached the Tata Group to create a domestic beauty brand that could meet the needs of Indian women.

In response, the Tata Group launched Lakmé in 1952, named after the French opera 'Lakmé', which was inspired by the Indian goddess Lakshmi, symbolising beauty and prosperity. Lakmé became the first Indian cosmetics brand to offer a wide range of skincare and makeup products specifically designed for Indian skin tones and preferences. The brand quickly gained popularity, as it provided high-quality beauty products at a price point accessible to the average Indian consumer.

Under the leadership of Simone Tata, who played a key role in shaping the brand's identity, Lakmé expanded its product range and became a household name in India. In 1996, the Tata Group sold its stake in Lakmé to Hindustan Unilever, ensuring the brand's continued growth and presence in the Indian market. Today, Lakmé remains a symbol of Indian beauty and innovation, continuing to cater to the evolving needs of modern women across the country.

SubQuestion No : 17

Q.17 What was the inspiration behind the name 'Lakmé'?

Ans

✗ 1. An Indian queen

✗ 2. A place in France

✗ 3. A famous beauty icon

✓ 4. A French opera

Question ID : **441009366774**
Option 1 ID : **4410091433250**
Option 2 ID : **4410091433253**
Option 3 ID : **4410091433252**
Option 4 ID : **4410091433251**

Quick Sarkari

Comprehension:

Read the given passage and answer the questions that follow.

Lakme India, one of the leading cosmetic brands in the country, has an interesting origin story tied to the post-independence era. In the early 1950s, India was still a young nation finding its footing in various industries. At that time, Indian women primarily used imported beauty products, which were both expensive and difficult to obtain. Recognising the need for affordable and locally made cosmetics, the then Prime Minister of India, Jawaharlal Nehru, approached the Tata Group to create a domestic beauty brand that could meet the needs of Indian women.

In response, the Tata Group launched Lakmé in 1952, named after the French opera 'Lakmé', which was inspired by the Indian goddess Lakshmi, symbolising beauty and prosperity. Lakmé became the first Indian cosmetics brand to offer a wide range of skincare and makeup products specifically designed for Indian skin tones and preferences. The brand quickly gained popularity, as it provided high-quality beauty products at a price point accessible to the average Indian consumer.

Under the leadership of Simone Tata, who played a key role in shaping the brand's identity, Lakmé expanded its product range and became a household name in India. In 1996, the Tata Group sold its stake in Lakmé to Hindustan Unilever, ensuring the brand's continued growth and presence in the Indian market. Today, Lakmé remains a symbol of Indian beauty and innovation, continuing to cater to the evolving needs of modern women across the country.

SubQuestion No : 18

Q.18 What role did Simone Tata play in the development of Lakmé?

Ans

✗ 1. She brought many French fragrances.

✗ 2. She designed all products.

✓ 3. She expanded the brand.

✗ 4. She named the brand after herself.

Question ID : **441009366775**
Option 1 ID : **4410091433257**
Option 2 ID : **4410091433254**
Option 3 ID : **4410091433255**
Option 4 ID : **4410091433256**

QuickSarkari.com | WhatsApp Channel | Telegram: t.me/quick_sarkari

Comprehension:

Read the given passage and answer the questions that follow.

Lakme India, one of the leading cosmetic brands in the country, has an interesting origin story tied to the post-independence era. In the early 1950s, India was still a young nation finding its footing in various industries. At that time, Indian women primarily used imported beauty products, which were both expensive and difficult to obtain. Recognising the need for affordable and locally made cosmetics, the then Prime Minister of India, Jawaharlal Nehru, approached the Tata Group to create a domestic beauty brand that could meet the needs of Indian women.

In response, the Tata Group launched Lakmé in 1952, named after the French opera 'Lakmé', which was inspired by the Indian goddess Lakshmi, symbolising beauty and prosperity. Lakmé became the first Indian cosmetics brand to offer a wide range of skincare and makeup products specifically designed for Indian skin tones and preferences. The brand quickly gained popularity, as it provided high-quality beauty products at a price point accessible to the average Indian consumer.

Under the leadership of Simone Tata, who played a key role in shaping the brand's identity, Lakmé expanded its product range and became a household name in India. In 1996, the Tata Group sold its stake in Lakmé to Hindustan Unilever, ensuring the brand's continued growth and presence in the Indian market. Today, Lakmé remains a symbol of Indian beauty and innovation, continuing to cater to the evolving needs of modern women across the country.

SubQuestion No : 19

Q.19 Why was Lakmé popular among Indian women in the 1950s?

Ans

✗ 1. It offered international products.

✗ 2. It was the sole French product.

✓ 3. It focused on Indian skin tones.

✗ 4. It was advertised by film stars.

Question ID : **441009366777**
Option 1 ID : **4410091433263**
Option 2 ID : **4410091433264**
Option 3 ID : **4410091433262**
Option 4 ID : **4410091433265**

QuickSarkari.com | WhatsApp Channel | Telegram: t.me/quick_sarkari

Comprehension:

Read the given passage and answer the questions that follow.

Lakme India, one of the leading cosmetic brands in the country, has an interesting origin story tied to the post-independence era. In the early 1950s, India was still a young nation finding its footing in various industries. At that time, Indian women primarily used imported beauty products, which were both expensive and difficult to obtain. Recognising the need for affordable and locally made cosmetics, the then Prime Minister of India, Jawaharlal Nehru, approached the Tata Group to create a domestic beauty brand that could meet the needs of Indian women.

In response, the Tata Group launched Lakmé in 1952, named after the French opera 'Lakmé', which was inspired by the Indian goddess Lakshmi, symbolising beauty and prosperity. Lakmé became the first Indian cosmetics brand to offer a wide range of skincare and makeup products specifically designed for Indian skin tones and preferences. The brand quickly gained popularity, as it provided high-quality beauty products at a price point accessible to the average Indian consumer.

Under the leadership of Simone Tata, who played a key role in shaping the brand's identity, Lakmé expanded its product range and became a household name in India. In 1996, the Tata Group sold its stake in Lakmé to Hindustan Unilever, ensuring the brand's continued growth and presence in the Indian market. Today, Lakmé remains a symbol of Indian beauty and innovation, continuing to cater to the evolving needs of modern women across the country.

SubQuestion No : 20

Q.20 How did Lakmé impact the beauty industry in India?

Ans

✗ 1. It imported products from France.

✓ 2. It made cosmetics affordable for Indian women.

✗ 3. It only catered to elite customers.

✗ 4. It reduced the use of cosmetics in India.

Question ID : **441009366776**
Option 1 ID : **4410091433259**
Option 2 ID : **4410091433258**
Option 3 ID : **4410091433260**
Option 4 ID : **4410091433261**

Section : **Test of English Language and Comprehension1**

Q.1 Select the option that can be used as a one-word substitute for the given group of words.

The theory that believes that nothing can be known about the existence of God

Ans

✗ 1. Nihilism

✗ 2. Athleticism

✗ 3. Skepticism

✓ 4. Agnosticism

Question ID : **441009366581**
Option 1 ID : **4410091432487**
Option 2 ID : **4410091432489**
Option 3 ID : **4410091432488**
Option 4 ID : **4410091432486**

Q.2 **Select the option that can be used as a one-word substitute for the given group of words.**

A person who is new to a subject or activity

Ans
✗ 1. Professional
✓ 2. Novice
✗ 3. Veteran
✗ 4. Expert

Question ID : **441009366600**
Option 1 ID : **4410091432565**
Option 2 ID : **4410091432564**
Option 3 ID : **4410091432563**
Option 4 ID : **4410091432562**

Q.3 **Select the most appropriate ANTONYM of the underlined word in the given sentence.**

His <u>altruistic</u> actions were praised by everyone at the charity event.

Ans
✓ 1. Self-centred
✗ 2. Compassionate
✗ 3. Thoughtful
✗ 4. Generous

Question ID : **441009412545**
Option 1 ID : **4410091615571**
Option 2 ID : **4410091615572**
Option 3 ID : **4410091615573**
Option 4 ID : **4410091615570**

Q.4 **Select the most appropriate idiom that can substitute the underlined segment in the given sentence.**

After the misunderstanding, Sarah decided to <u>clarify the situation and explain</u> herself.

Ans
✓ 1. set the record straight
✗ 2. paint the town red
✗ 3. hit the nail on the head
✗ 4. walk on air

Question ID : **441009823938**
Option 1 ID : **4410093249841**
Option 2 ID : **4410093249838**
Option 3 ID : **4410093249839**
Option 4 ID : **4410093249840**

QuickSarkari.com | WhatsApp Channel | Telegram: t.me/quick_sarkari

Q.5 **Fill in the blank with the most appropriate homonym.**
He deserves all the _____ for his hard work.

Ans
✔ 1. praise
✘ 2. preys
✘ 3. prays
✘ 4. prase

Question ID : **441009403056**
Option 1 ID : **4410091577615**
Option 2 ID : **4410091577617**
Option 3 ID : **4410091577616**
Option 4 ID : **4410091577614**

Q.6 **Select the most appropriate meaning of the given proverb.**

You can lead a horse to water, but you can't make him drink it

Ans
✘ 1. When you really encourage a person, he can follow every instruction of yours
✘ 2. You can make someone do something but they have to listen to your carefully
✘ 3. Without watching what others are doing, you cannot guide them well
✔ 4. You can make it easy for someone to do something, but you cannot force them to do it

Question ID : **441009412198**
Option 1 ID : **4410091614182**
Option 2 ID : **4410091614185**
Option 3 ID : **4410091614183**
Option 4 ID : **4410091614184**

Q.7 **Select the option that can be used as a one-word substitute for the given group of words.**

A sudden and uncontrollable outburst of anger

Ans
✘ 1. Tranquility
✔ 2. Tantrum
✘ 3. Serenity
✘ 4. Composure

Question ID : **441009366727**
Option 1 ID : **4410091433073**
Option 2 ID : **4410091433070**
Option 3 ID : **4410091433071**
Option 4 ID : **4410091433072**

QuickSarkari.com | WhatsApp Channel | Telegram: t.me/quick_sarkari

Q.8 **Select the most appropriate option that rectifies the incorrectly spelt word in the given sentence.**

The physician recommended a strict regimant for the patient's recovery.

Ans
✗ 1. Physician - phycisian
✗ 2. Recovery - recovary
✗ 3. Recommended - recomendded
✓ 4. Regimant - regimen

Question ID : **441009412533**
Option 1 ID : **4410091615522**
Option 2 ID : **4410091615525**
Option 3 ID : **4410091615523**
Option 4 ID : **4410091615524**

Q.9 **Identify the INCORRECTLY spelt word in the given sentence.**
Severe penalties are dealt out to persistant offenders.783

Ans
✗ 1. penalties
✓ 2. persistant
✗ 3. offenders
✗ 4. severe

Question ID : **441009823948**
Option 1 ID : **4410093249880**
Option 2 ID : **4410093249878**
Option 3 ID : **4410093249879**
Option 4 ID : **4410093249881**

Q.10 **Select the most appropriate homonym to fill in the blank.**

She had to _____ the pain during the procedure.

Ans
✗ 1. beer
✓ 2. bear
✗ 3. be
✗ 4. bare

Question ID : **441009408132**
Option 1 ID : **4410091597920**
Option 2 ID : **4410091597919**
Option 3 ID : **4410091597921**
Option 4 ID : **4410091597918**

QuickSarkari.com | WhatsApp Channel | Telegram: t.me/quick_sarkari

Q.11 Select the most appropriate idiom that can substitute the underlined segment in the given sentence.

He was very excited for the trip, but after hearing the bad news, his thrill vanished quickly. Thus, his fantasies were shattered.

Ans
1. fish came out of water
2. bubbles were burst
3. marbles were lost
4. sacked was hit

Question ID : **441009412275**
Option 1 ID : **4410091614493**
Option 2 ID : **4410091614490**
Option 3 ID : **4410091614491**
Option 4 ID : **4410091614492**

Q.12 Select the most appropriate ANTONYM of the highlighted word in the given sentence.

The **oleaginous** politician's slick charm and fawning were easily seen through by the discerning voters.

Ans
1. Oily
2. Regal
3. Copious
4. Earnest

Question ID : **441009412720**
Option 1 ID : **4410091616273**
Option 2 ID : **4410091616270**
Option 3 ID : **4410091616272**
Option 4 ID : **4410091616271**

Q.13 Select the most appropriate ANTONYM of the given word.

Replenish786

Ans
1. Deplete
2. Furnish
3. Charge
4. Refill

Question ID : **441009823951**
Option 1 ID : **4410093249890**
Option 2 ID : **4410093249893**
Option 3 ID : **4410093249892**
Option 4 ID : **4410093249891**

QuickSarkari.com | WhatsApp Channel | Telegram: t.me/quick_sarkari

Q.14 Select the option that can be used as a one-word substitute for the given group of words.

A person who is quick to understand, learn and devise or apply ideas

Ans
✗ 1. Dim-witted
✓ 2. Clever
✗ 3. Slow
✗ 4. Obtuse

Question ID : **441009366595**
Option 1 ID : **4410091432544**
Option 2 ID : **4410091432543**
Option 3 ID : **4410091432545**
Option 4 ID : **4410091432542**

Q.15 Select the most appropriate ANTONYM of the underlined word to fill the blank.

The room was filled with laughter, but after the sad news, the atmosphere turned _____.

Ans
✓ 1. gloomy
✗ 2. cheerful
✗ 3. bright
✗ 4. happy

Question ID : **441009412290**
Option 1 ID : **4410091614550**
Option 2 ID : **4410091614551**
Option 3 ID : **4410091614553**
Option 4 ID : **4410091614552**

Comprehension:

In the following passage, some words have been deleted. Read the passage carefully and select the most appropriate option to fill in each blank.

Do boys and girls do everything differently? People opine that women in politics (1)_____ their leadership role differently than men. If we look at academics, girls generally (2)_____ boys. In our society, boys and girls are not treated similarly. In the employment sector, many believe that male and female employees have different working patterns. It is strongly believed that male employees consider work as (3)_____ to their lives, while females work for fun. There are endless debates on boys and girls being different. But employers want the work to be done. Hence, they (4)_____ employment bias. Consequently, the prevailing discriminations are also somewhat quelled. Keeping these (5)_____ explanations aside, employment is pivotal for sustenance.

SubQuestion No : 16

Q.16 Select the most appropriate option to fill in blank number 4.

Ans
✗ 1. ignore
✗ 2. highlight
✗ 3. oversee
✓ 4. stamp out

Question ID : **441009366769**
Option 1 ID : **4410091433236**
Option 2 ID : **4410091433234**
Option 3 ID : **4410091433237**
Option 4 ID : **4410091433235**

QuickSarkari.com | WhatsApp Channel | Telegram: t.me/quick_sarkari

Comprehension:

In the following passage, some words have been deleted. Read the passage carefully and select the most appropriate option to fill in each blank.

Do boys and girls do everything differently? People opine that women in politics (1)_____ their leadership role differently than men. If we look at academics, girls generally (2)_____ boys. In our society, boys and girls are not treated similarly. In the employment sector, many believe that male and female employees have different working patterns. It is strongly believed that male employees consider work as (3)_____ to their lives, while females work for fun. There are endless debates on boys and girls being different. But employers want the work to be done. Hence, they (4)_____ employment bias. Consequently, the prevailing discriminations are also somewhat quelled. Keeping these (5)_____ explanations aside, employment is pivotal for sustenance.

SubQuestion No : 17

Q.17 Select the most appropriate option to fill in blank number 3.

Ans

✗ 1. trivial

✗ 2. preliminary

✗ 3. meaningless

✓ 4. pivotal

Question ID : **441009366768**
Option 1 ID : **4410091433230**
Option 2 ID : **4410091433233**
Option 3 ID : **4410091433231**
Option 4 ID : **4410091433232**

Comprehension:

In the following passage, some words have been deleted. Read the passage carefully and select the most appropriate option to fill in each blank.

Do boys and girls do everything differently? People opine that women in politics (1)_____ their leadership role differently than men. If we look at academics, girls generally (2)_____ boys. In our society, boys and girls are not treated similarly. In the employment sector, many believe that male and female employees have different working patterns. It is strongly believed that male employees consider work as (3)_____ to their lives, while females work for fun. There are endless debates on boys and girls being different. But employers want the work to be done. Hence, they (4)_____ employment bias. Consequently, the prevailing discriminations are also somewhat quelled. Keeping these (5)_____ explanations aside, employment is pivotal for sustenance.

SubQuestion No : 18

Q.18 Select the most appropriate option to fill in blank number 2.

Ans

✓ 1. outdo

✗ 2. outcast

✗ 3. outlive

✗ 4. outwork

Question ID : **441009366767**
Option 1 ID : **4410091433226**
Option 2 ID : **4410091433228**
Option 3 ID : **4410091433227**
Option 4 ID : **4410091433229**

Comprehension:

In the following passage, some words have been deleted. Read the passage carefully and select the most appropriate option to fill in each blank.

Do boys and girls do everything differently? People opine that women in politics (1)_____ their leadership role differently than men. If we look at academics, girls generally (2)_____ boys. In our society, boys and girls are not treated similarly. In the employment sector, many believe that male and female employees have different working patterns. It is strongly believed that male employees consider work as (3)_____ to their lives, while females work for fun. There are endless debates on boys and girls being different. But employers want the work to be done. Hence, they (4)_____ employment bias. Consequently, the prevailing discriminations are also somewhat quelled. Keeping these (5)_____ explanations aside, employment is pivotal for sustenance.

SubQuestion No : 19

Q.19 Select the most appropriate option to fill in blank number 5.

Ans

✗ 1. compromising

✗ 2. conscious

✓ 3. contradictory

✗ 4. complimentary

Question ID : **441009366770**
Option 1 ID : **4410091433239**
Option 2 ID : **4410091433238**
Option 3 ID : **4410091433240**
Option 4 ID : **4410091433241**

Comprehension:

In the following passage, some words have been deleted. Read the passage carefully and select the most appropriate option to fill in each blank.

Do boys and girls do everything differently? People opine that women in politics (1)_____ their leadership role differently than men. If we look at academics, girls generally (2)_____ boys. In our society, boys and girls are not treated similarly. In the employment sector, many believe that male and female employees have different working patterns. It is strongly believed that male employees consider work as (3)_____ to their lives, while females work for fun. There are endless debates on boys and girls being different. But employers want the work to be done. Hence, they (4)_____ employment bias. Consequently, the prevailing discriminations are also somewhat quelled. Keeping these (5)_____ explanations aside, employment is pivotal for sustenance.

SubQuestion No : 20

Q.20 Select the most appropriate option to fill in blank number 1.

Ans

✗ 1. follow

✓ 2. exercise

✗ 3. observe

✗ 4. enact

Question ID : **441009366766**
Option 1 ID : **4410091433224**
Option 2 ID : **4410091433223**
Option 3 ID : **4410091433225**
Option 4 ID : **4410091433222**

Section : **Test of Hindi Language and Comprehension**

Q.1 निम्नलिखित वाक्य के लिए उचित क्रिया विशेषण शब्द का प्रयोग करें-
मैं _____ होकर आया हूँ।

Ans
✔ 1. वहाँ
✘ 2. ध्यानपूर्वक
✘ 3. धीरे
✘ 4. कहाँ

Question ID : **44100920106**
Option 1 ID : **44100980157**
Option 2 ID : **44100980160**
Option 3 ID : **44100980159**
Option 4 ID : **44100980158**

Q.2 वाक्य विन्यास की दृष्टि से दिए गए वाक्य के किस अंश में त्रुटि है--
पैसा मिलने के उसे अलावा प्रोत्साहन और प्रशंसा भी मिली।

Ans
✘ 1. पैसा मिलने के
✔ 2. उसे अलावा
✘ 3. प्रोत्साहन और
✘ 4. प्रशंसा भी मिली।

Question ID : **441009473456**
Option 1 ID : **4410091849237**
Option 2 ID : **4410091849238**
Option 3 ID : **4410091849239**
Option 4 ID : **4410091849240**

Q.3 निम्नलिखित वाक्य के लिए उचित क्रिया विशेषण शब्द का प्रयोग करें-
हमें _____ सूर्य नमस्कार करना चाहिए।

Ans
✘ 1. गीत
✔ 2. प्रतिदिन
✘ 3. चलते-चलते
✘ 4. निकट

Question ID : **44100920114**
Option 1 ID : **44100980189**
Option 2 ID : **44100980190**
Option 3 ID : **44100980191**
Option 4 ID : **44100980192**

Q.4 'मोहित <u>कम बोलने वाला</u> बालक है।' रेखांकित वाक्यांश के लिए सर्वाधिक उपयुक्त शब्द है-

Ans
✘ 1. अपभाषी
✘ 2. अभाषी
✘ 3. बहुभाषी
✔ 4. मितभाषी

Question ID : **441009365020**
Option 1 ID : **4410091426331**
Option 2 ID : **4410091426333**
Option 3 ID : **4410091426330**
Option 4 ID : **4410091426332**

QuickSarkari.com | WhatsApp Channel | Telegram: t.me/quick_sarkari

Q.5 'आप मियां मांगते दरवाजे खड़ा दरवेश' इस लोकोक्ति का क्या अर्थ है? 2138

Ans
✗ 1. दोहरा लाभ होना
✓ 2. जो स्वयं दरिद्र है वह दूसरों की सहायता नहीं कर सकता
✗ 3. विपत्ति को जानबूझकर आमंत्रित करना
✗ 4. अमीर गरीब सभी को मरना है

Question ID : **441009442418**
Option 1 ID : **4410091728356**
Option 2 ID : **4410091728354**
Option 3 ID : **4410091728355**
Option 4 ID : **4410091728353**

Q.6 निम्नलिखित में से शुद्ध वाक्य का चयन करें-

Ans
✗ 1. इन वर्षों के बीच दोनों देशों के बीच कटुता उत्पन्न हो गयी|
✓ 2. अपने देश के लिए प्रत्येक भारतीय अपनी जान न्योछावर कर सकता है|
✗ 3. धीरे-धीरे अच्छे विद्यार्थी सफल होते पढ़कर हैं|
✗ 4. मुझे बताओ तुम्हारा कहाँ हुआ था जन्म?

Question ID : **441009472043**
Option 1 ID : **4410091843587**
Option 2 ID : **4410091843588**
Option 3 ID : **4410091843586**
Option 4 ID : **4410091843585**

Q.7 निम्नलिखित वाक्य के लिए उचित विशेषण का प्रयोग करें-
हमें _____ वातावरण में रहना चाहिए।

Ans
✗ 1. कुछ
✗ 2. यह
✓ 3. स्वच्छ
✗ 4. गोल

Question ID : **44100920047**
Option 1 ID : **44100979918**
Option 2 ID : **44100979919**
Option 3 ID : **44100979917**
Option 4 ID : **44100979920**

Q.8 निम्नलिखित वाक्य को क्रम में लिखें।
रास्ते में बहुत था ट्रैफिक इसलिए हम देर आधा घंटा से पहुंचे हैं।

Ans
✗ 1. रास्ते में ट्रैफिक देर से बहुत था इसलिए हम आधा घंटा हैं पहुंचे
✗ 2. रास्ते में इसलिए हम ट्रैफिक बहुत आधा था घंटा देर से पहुंचे हैं।
✗ 3. ट्रैफिक बहुत रास्ते में था इसलिए घंटा देर हम आधा से पहुंचे हैं।
✓ 4. रास्ते में ट्रैफिक बहुत था इसलिए हम आधा घंटा देर से पहुंचे हैं।

Question ID : **441009365001**
Option 1 ID : **4410091426256**
Option 2 ID : **4410091426255**
Option 3 ID : **4410091426257**
Option 4 ID : **4410091426254**

QuickSarkari.com | WhatsApp Channel | Telegram: t.me/quick_sarkari

Q.9 निम्नलिखित वाक्य के लिए उचित विशेषण का प्रयोग करें-
मैंने _____ सेब खरीदे।

Ans
✗ 1. एक गज
✓ 2. एक किलो
✗ 3. एक बीघा
✗ 4. एक लीटर

Question ID : **44100920050**
Option 1 ID : **44100979932**
Option 2 ID : **44100979930**
Option 3 ID : **44100979931**
Option 4 ID : **44100979929**

Q.10 अधोलिखित वाक्यांश के लिए एक सार्थक शब्द क्या होगा?
'व्यक्ति जो ठीक समय पर तुरंत किसी बात या युक्ति को सोच ले'।

Ans
✗ 1. प्रत्युत्पन्न
✗ 2. प्रत्यागत
✗ 3. प्रत्युक्त
✓ 4. प्रत्युत्पन्नमति

Question ID : **441009474929**
Option 1 ID : **4410091855130**
Option 2 ID : **4410091855131**
Option 3 ID : **4410091855129**
Option 4 ID : **4410091855132**

Q.11 'बात तक न पूछना' मुहावरे का अर्थ निम्न में से होगा-737

Ans
✓ 1. आदर न करना
✗ 2. आज्ञा न लेना
✗ 3. बात न करना
✗ 4. नाराज़ होना

Question ID : **441009441017**
Option 1 ID : **4410091722749**
Option 2 ID : **4410091722752**
Option 3 ID : **4410091722750**
Option 4 ID : **4410091722751**

Q.12 निम्नलिखित गद्य में से अतिरिक्त वाक्य का चुनाव करें।
रात काफी हो चुकी थी। चंद्रमा के प्रकाश में सबकुछ दूधिया नज़र आ रहा था। चंद्रमा के इस प्रकाश में ज्योति का चेहरा चमक रहा था। तभी उसने देखा सूर्य ग्रहण होने लगा।

Ans
✗ 1. रात काफी हो चुकी थी।
✗ 2. चंद्रमा के इस प्रकाश में ज्योति का चेहरा चमक रहा था।
✓ 3. तभी उसने देखा सूर्य ग्रहण होने लगा।
✗ 4. चंद्रमा के प्रकाश में सबकुछ दूधिया नज़र आ रहा था।

Question ID : **441009365016**
Option 1 ID : **4410091426315**
Option 2 ID : **4410091426317**
Option 3 ID : **4410091426314**
Option 4 ID : **4410091426316**

QuickSarkari.com | WhatsApp Channel | Telegram: t.me/quick_sarkari

Q.13 नीचे दिए परिच्छेद का अतिरिक्त वाक्य चुनें-
वसंत ऋतु के आते ही शीत की कठोरता जाती रही। पश्चिम के पवन ने वृक्षों के जीर्ण-शीर्ण पत्ते गिरा दिए। तेनसिंह साहसी और वीर थे। वृक्षों और लताओं में नए पत्ते और रंग-बिरंगे फूल निकल आए। 2748

Ans
✔ 1. तेनसिंह साहसी और वीर थे।
✘ 2. वृक्षों और लताओं में नए पत्ते और रंग-बिरंगे फूल निकल आए।
✘ 3. वसंत ऋतु के आते ही शीत की कठोरता जाती रही।
✘ 4. पश्चिम के पवन ने वृक्षों के जीर्ण-शीर्ण पत्ते गिरा दिए।

Question ID : **441009474503**
Option 1 ID : **4410091853427**
Option 2 ID : **4410091853428**
Option 3 ID : **4410091853425**
Option 4 ID : **4410091853426**

Q.14 निम्नलिखित वाक्य को क्रम में लिखें।
तुम और रिया रात को सिनेमा जा रहे हो फिल्म देखने तो हम भी चलें तुम्हारे साथ।

Ans
✘ 1. हम भी फिल्म देखने तुम और रिया तुम्हारे साथ चलें सिनेमा जा रहे हो तो।
✘ 2. तुम और फिल्म रिया देखने सिनेमा तो हम भी तुम्हारे जा रहे हो साथ चलें।
✘ 3. तुम सिनेमा जा और रिया फिल्म देखने साथ रहे हो तो हम भी तुम्हारे चलें।
✔ 4. तुम और रिया फिल्म देखने सिनेमा जा रहे हो तो हम भी तुम्हारे साथ चलें।

Question ID : **441009365003**
Option 1 ID : **4410091426263**
Option 2 ID : **4410091426264**
Option 3 ID : **4410091426265**
Option 4 ID : **4410091426262**

Q.15 निम्नलिखित वाक्य में क्रिया विशेषण संबंधी अशुद्धि है। दिए गए विकल्पों में से उचित क्रिया विशेषण द्वारा वाक्य को शुद्ध कीजिए-
जंगल में <u>बड़ा</u> अंधकार है।

Ans
✘ 1. अद्भुत
✔ 2. घना
✘ 3. बहुत
✘ 4. घनघोर

Question ID : **4410092006**
Option 1 ID : **4410097962**
Option 2 ID : **4410097963**
Option 3 ID : **4410097960**
Option 4 ID : **4410097961**

QuickSarkari.com | WhatsApp Channel | Telegram: t.me/quick_sarkari

Comprehension:

दिए गए गद्यांश के आधार पर निम्नलिखित प्रश्नों के उत्तर दीजिए –
सत्य अपना पूरा मूल्य चाहता है । उसके साथ समझौता नहीं हो सकता । साहित्य के चरम सत्य को पाने के लिए भी उसका पूरा - पूरा मूल्य चुकाना ही समीचीन है । लोग पग - पग पर सहज और सीधे साधनों की दुहाई दिया करते हैं , शायद किसी बड़े लक्ष्य की बात नहीं सोचते । मनुष्य को उसके उच्चतर लक्ष्य तक पहुँचाने के लिए उसके प्रतिदिन के व्यवहार में आने वाली प्रवृत्तियों के साथ सुलह करने से काम नहीं चलेगा । कठोर संयम और त्याग द्वारा ही उसे बड़ा बनाया जा सकेगा । जो बात इस क्षेत्र में सत्य है , वह सभी क्षेत्रों में सत्य है – साहित्य में , भाषा में , आचार में , विचार में , सर्वत्र । भाषा को ही देखिए । मनुष्य अपने आहार और निद्रा के साधनों को जुटाने के लिए भाषा का व्यवहार करता है । यह उसकी अनायास लब्ध भाषा है परन्तु यदि उसे इस धरातल से ऊपर उठना है , तो उतने से काम नहीं बनेगा । सहज भाषा आवश्यक है किन्तु सहज भाषा का मतलब है , सहज ही महान बनाने वाली भाषा , रास्ते में बटोरकर संग्रह की हुई भाषा नहीं । 181

SubQuestion No : 16

Q.16 ' समीचीन ' का अर्थ है - 185

Ans

✗ 1. प्रायोगिक

✗ 2. इतिहास-सम्मत

✗ 3. महत्वपूर्ण

✓ 4. उचित

Question ID : **441009437759**
Option 1 ID : **4410091710427**
Option 2 ID : **4410091710428**
Option 3 ID : **4410091710426**
Option 4 ID : **4410091710429**

Comprehension:

दिए गए गद्यांश के आधार पर निम्नलिखित प्रश्नों के उत्तर दीजिए –
सत्य अपना पूरा मूल्य चाहता है । उसके साथ समझौता नहीं हो सकता । साहित्य के चरम सत्य को पाने के लिए भी उसका पूरा - पूरा मूल्य चुकाना ही समीचीन है । लोग पग - पग पर सहज और सीधे साधनों की दुहाई दिया करते हैं , शायद किसी बड़े लक्ष्य की बात नहीं सोचते । मनुष्य को उसके उच्चतर लक्ष्य तक पहुँचाने के लिए उसके प्रतिदिन के व्यवहार में आने वाली प्रवृत्तियों के साथ सुलह करने से काम नहीं चलेगा । कठोर संयम और त्याग द्वारा ही उसे बड़ा बनाया जा सकेगा । जो बात इस क्षेत्र में सत्य है , वह सभी क्षेत्रों में सत्य है – साहित्य में , भाषा में , आचार में , विचार में , सर्वत्र । भाषा को ही देखिए । मनुष्य अपने आहार और निद्रा के साधनों को जुटाने के लिए भाषा का व्यवहार करता है । यह उसकी अनायास लब्ध भाषा है परन्तु यदि उसे इस धरातल से ऊपर उठना है , तो उतने से काम नहीं बनेगा । सहज भाषा आवश्यक है किन्तु सहज भाषा का मतलब है , सहज ही महान बनाने वाली भाषा , रास्ते में बटोरकर संग्रह की हुई भाषा नहीं । 181

SubQuestion No : 17

Q.17 ' सर्वत्र ' का विलोम शब्द है -186

Ans

✗ 1. ताम्रपत्र

✗ 2. समयानुसार कार्य

✗ 3. सब जगह

✓ 4. कहीं नहीं

Question ID : **441009437760**
Option 1 ID : **4410091710430**
Option 2 ID : **4410091710432**
Option 3 ID : **4410091710431**
Option 4 ID : **4410091710433**

QuickSarkari.com | WhatsApp Channel | Telegram: t.me/quick_sarkari

Comprehension:

दिए गए गद्यांश के आधार पर निम्नलिखित प्रश्नों के उत्तर दीजिए –
सत्य अपना पूरा मूल्य चाहता है । उसके साथ समझौता नहीं हो सकता । साहित्य के चरम सत्य को पाने के लिए भी उसका पूरा - पूरा मूल्य चुकाना ही समीचीन है । लोग पग - पग पर सहज और सीधे साधनों की दुहाई दिया करते हैं , शायद किसी बड़े लक्ष्य की बात नहीं सोचते । मनुष्य को उसके उच्चतर लक्ष्य तक पहुँचाने के लिए उसके प्रतिदिन के व्यवहार में आने वाली प्रवृत्तियों के साथ सुलह करने से काम नहीं चलेगा । कठोर संयम और त्याग द्वारा ही उसे बड़ा बनाया जा सकेगा । जो बात इस क्षेत्र में सत्य है , वह सभी क्षेत्रों में सत्य है – साहित्य में , भाषा में , आचार में , विचार में , सर्वत्र । भाषा को ही देखिए । मनुष्य अपने आहार और निद्रा के साधनों को जुटाने के लिए भाषा का व्यवहार करता है । यह उसकी अनायास लब्ध भाषा है परन्तु यदि उसे इस धरातल से ऊपर उठना है , तो उतने से काम नहीं बनेगा । सहज भाषा आवश्यक है किन्तु सहज भाषा का मतलब है , सहज ही महान बनाने वाली भाषा , रास्ते में बटोरकर संग्रह की हुई भाषा नहीं । 181

SubQuestion No : 18

Q.18 लक्ष्य को बड़ा किसके द्वारा बनाया जा सकता है ?183

Ans

✗ 1. यथार्थ और श्रम

✗ 2. कल्पना और बुद्धि

✗ 3. प्रतिभा और स्वप्न

✓ 4. संयम और त्याग

Question ID : **441009437757**
Option 1 ID : **4410091710421**
Option 2 ID : **4410091710419**
Option 3 ID : **4410091710420**
Option 4 ID : **4410091710418**

Comprehension:

दिए गए गद्यांश के आधार पर निम्नलिखित प्रश्नों के उत्तर दीजिए –
सत्य अपना पूरा मूल्य चाहता है । उसके साथ समझौता नहीं हो सकता । साहित्य के चरम सत्य को पाने के लिए भी उसका पूरा - पूरा मूल्य चुकाना ही समीचीन है । लोग पग - पग पर सहज और सीधे साधनों की दुहाई दिया करते हैं , शायद किसी बड़े लक्ष्य की बात नहीं सोचते । मनुष्य को उसके उच्चतर लक्ष्य तक पहुँचाने के लिए उसके प्रतिदिन के व्यवहार में आने वाली प्रवृत्तियों के साथ सुलह करने से काम नहीं चलेगा । कठोर संयम और त्याग द्वारा ही उसे बड़ा बनाया जा सकेगा । जो बात इस क्षेत्र में सत्य है , वह सभी क्षेत्रों में सत्य है – साहित्य में , भाषा में , आचार में , विचार में , सर्वत्र । भाषा को ही देखिए । मनुष्य अपने आहार और निद्रा के साधनों को जुटाने के लिए भाषा का व्यवहार करता है । यह उसकी अनायास लब्ध भाषा है परन्तु यदि उसे इस धरातल से ऊपर उठना है , तो उतने से काम नहीं बनेगा । सहज भाषा आवश्यक है किन्तु सहज भाषा का मतलब है , सहज ही महान बनाने वाली भाषा , रास्ते में बटोरकर संग्रह की हुई भाषा नहीं । 181

SubQuestion No : 19

Q.19 सहज भाषा का आशय है -184

Ans

✗ 1. क्लिष्ट भाषा

✗ 2. संग्रह की भाषा

✓ 3. सहज ही महान बनाने वाली भाषा

✗ 4. चमत्कारिक भाषा

Question ID : **441009437758**
Option 1 ID : **4410091710424**
Option 2 ID : **4410091710422**
Option 3 ID : **4410091710423**
Option 4 ID : **4410091710425**

Comprehension:

दिए गए गद्यांश के आधार पर निम्नलिखित प्रश्नों के उत्तर दीजिए –
सत्य अपना पूरा मूल्य चाहता है । उसके साथ समझौता नहीं हो सकता । साहित्य के चरम सत्य को पाने के लिए भी उसका पूरा - पूरा मूल्य चुकाना ही समीचीन है । लोग पग - पग पर सहज और सीधे साधनों की दुहाई दिया करते हैं , शायद किसी बड़े लक्ष्य की बात नहीं सोचते । मनुष्य को उसके उच्चतर लक्ष्य तक पहुँचाने के लिए उसके प्रतिदिन के व्यवहार में आने वाली प्रवृत्तियों के साथ सुलह करने से काम नहीं चलेगा । कठोर संयम और त्याग द्वारा ही उसे बड़ा बनाया जा सकेगा । जो बात इस क्षेत्र में सत्य है , वह सभी क्षेत्रों में सत्य है – साहित्य में , भाषा में , आचार में , विचार में , सर्वत्र । भाषा को ही देखिए । मनुष्य अपने आहार और निद्रा के साधनों को जुटाने के लिए भाषा का व्यवहार करता है । यह उसकी अनायास लब्ध भाषा है परन्तु यदि उसे इस धरातल से ऊपर उठना है , तो उतने से काम नहीं बनेगा । सहज भाषा आवश्यक है किन्तु सहज भाषा का मतलब है , सहज ही महान बनाने वाली भाषा , रास्ते में बटोरकर संग्रह की हुई भाषा नहीं । 181

SubQuestion No : 20

Q.20 किसके साथ समझौता नहीं हो सकता ?182

Ans
✗ 1. मूल्य
✗ 2. मूल्य के सत्य
✗ 3. सत्य के मूल्य
✓ 4. सत्य

Question ID : **441009437756**
Option 1 ID : **4410091710415**
Option 2 ID : **4410091710416**
Option 3 ID : **4410091710417**
Option 4 ID : **4410091710414**

Section : **Test of Hindi Language and Comprehension1**

Q.1 "मीन मेख निकालना" – इस मुहावरे का अर्थ विकल्पों में से चयन कीजिए।1701

Ans
✗ 1. नष्ट करना
✗ 2. बहुत प्रसन्न होना
✗ 3. भयभीत होना
✓ 4. दोष ढूँढना

Question ID : **441009441981**
Option 1 ID : **4410091726605**
Option 2 ID : **4410091726607**
Option 3 ID : **4410091726606**
Option 4 ID : **4410091726608**

Q.2 निम्नलिखित विकल्पों में शुद्ध वाक्य को अंकित कीजिए।

Ans
✓ 1. आज भी स्वच्छता के मौलिक उद्देश्य से कई लोग अपरिचित हैं।
✗ 2. आज भी स्वच्छता के मौलिक उद्श्य से कई लोग अपरिचित हैं।
✗ 3. आज भी स्वच्छता के मौलिक उद्देश्य के लिए कई लोग अपरिचित है।
✗ 4. आज बी स्वच्छता के मौलिक उद्देश्य से कई लोग अपरिचित हैं।

Question ID : **441009443748**
Option 1 ID : **4410091733674**
Option 2 ID : **4410091733673**
Option 3 ID : **4410091733675**
Option 4 ID : **4410091733676**

QuickSarkari.com | WhatsApp Channel | Telegram: t.me/quick_sarkari

Q.3 शुक्ल का विलोम शब्द है-568

Ans
1. केशव
2. शुष्क
3. कृष्ण
4. मुरारी

Question ID : **441009440848**
Option 1 ID : **4410091722076**
Option 2 ID : **4410091722073**
Option 3 ID : **4410091722075**
Option 4 ID : **4410091722074**

Q.4 निम्नलिखित में से कौन सा एक 'पतंग' का अनेकार्थी नहीं है-

Ans
1. सूर्य
2. वस्त्र
3. पक्षी
4. पतिंगा

Question ID : **441009443790**
Option 1 ID : **4410091733842**
Option 2 ID : **4410091733844**
Option 3 ID : **4410091733843**
Option 4 ID : **4410091733841**

Q.5 निम्नलिखित शब्दों में से 'अथाह' का पर्याय है-729

Ans
1. अधिक
2. उथला
3. अगाध
4. अतिशय

Question ID : **441009441009**
Option 1 ID : **4410091722717**
Option 2 ID : **4410091722719**
Option 3 ID : **4410091722720**
Option 4 ID : **4410091722718**

Q.6 दिए गए किस वाक्य में वर्तनी संबंधी त्रुटि है- 1622

Ans
1. संन्यासियों की त्वचा शुष्क होती है
2. हिंस्र जीवों से जंगल भरा हुआ था
3. तरूणियाँ क्रीड़ा कर रही हैं
4. वृष्टि कुछ व्याधियाँ भी साथ लाती है

Question ID : **441009441902**
Option 1 ID : **4410091726292**
Option 2 ID : **4410091726290**
Option 3 ID : **4410091726289**
Option 4 ID : **4410091726291**

QuickSarkari.com | WhatsApp Channel | Telegram: t.me/quick_sarkari

Q.7 निम्नलिखित में से मुहावरा एवं उसके गलत अर्थ वाले युग्म को छांटिए।1526

Ans ✔ 1. मुँह खुलना - प्रसंशा हेतु मुँह खुलना

✘ 2. दाँत काटी रोटी - गहरी दोस्ती होना

✘ 3. नाक कटना - इज्जत जाना

✘ 4. हाथ गरम करना - घूस देना

Question ID : **441009441806**
Option 1 ID : **4410091725905**
Option 2 ID : **4410091725907**
Option 3 ID : **4410091725906**
Option 4 ID : **4410091725908**

Q.8 दिए गए वाक्य के किस भाग में त्रुटि है ?
'पिछले कुछ वर्षों से दुनिया कोरोना महामारी से झूज रही थी।'

Ans ✘ 1. महामारी से

✔ 2. झूज रही थी।

✘ 3. पिछले कुछ वर्षों

✘ 4. से दुनिया कोरोना

Question ID : **441009444066**
Option 1 ID : **4410091734947**
Option 2 ID : **4410091734948**
Option 3 ID : **4410091734945**
Option 4 ID : **4410091734946**

Q.9 निम्नलिखित में से एक 'तद्भव शब्द' नहीं है-

Ans ✘ 1. सुआ

✘ 2. सुथरा

✘ 3. सुघड़

✔ 4. शुक

Question ID : **441009443784**
Option 1 ID : **4410091733818**
Option 2 ID : **4410091733820**
Option 3 ID : **4410091733819**
Option 4 ID : **4410091733817**

Q.10 निम्नलिखित में से एक 'तत्सम शब्द' नहीं है-3502

Ans ✘ 1. शिर

✔ 2. साठ

✘ 3. शिला

✘ 4. शिक्षा

Question ID : **441009443782**
Option 1 ID : **4410091733810**
Option 2 ID : **4410091733809**
Option 3 ID : **4410091733811**
Option 4 ID : **4410091733812**

QuickSarkari.com | WhatsApp Channel | Telegram: t.me/quick_sarkari

Q.11 नीचे दिए विकल्पों में से वह शब्द चुनें जो 'अक्ष' का एक अर्थ नहीं है। 3201

Ans
✔ 1. सूर्य
✘ 2. सर्प
✘ 3. ज्ञान
✘ 4. आँख

Question ID : **441009443481**
Option 1 ID : **4410091732608**
Option 2 ID : **4410091732606**
Option 3 ID : **4410091732607**
Option 4 ID : **4410091732605**

Q.12 निम्नलिखित में से कौन-सा विलोम युग्म असुमेलित है-734

Ans
✘ 1. अभिप्रेत – अनभिप्रेत
✘ 2. अभिमुख – विमुख
✘ 3. अभिज्ञ – अनभिज्ञ
✔ 4. अभिमानी – अभिहित

Question ID : **441009441014**
Option 1 ID : **4410091722738**
Option 2 ID : **4410091722740**
Option 3 ID : **4410091722737**
Option 4 ID : **4410091722739**

Q.13 निलय, निकेतन इन पर्यायवाची शब्दों का अर्थ है –

Ans
✘ 1. पर्वत
✔ 2. आवास
✘ 3. प्रेक्षागृह
✘ 4. कोंपल

Question ID : **441009365526**
Option 1 ID : **4410091428255**
Option 2 ID : **4410091428254**
Option 3 ID : **4410091428257**
Option 4 ID : **4410091428256**

Q.14 दिए गए वाक्य के किस भाग में त्रुटि है ?
'वैश्विक मामलों में भारत का शांतिपूर्ण व संतुलित दृष्टिकोण परीलक्षित होता है।'

Ans
✔ 1. परीलक्षित होता है।
✘ 2. वैश्विक मामलों में
✘ 3. संतुलित दृष्टिकोण
✘ 4. भारत का शांतिपूर्ण व

Question ID : **441009444067**
Option 1 ID : **4410091734952**
Option 2 ID : **4410091734949**
Option 3 ID : **4410091734951**
Option 4 ID : **4410091734950**

QuickSarkari.com | WhatsApp Channel | Telegram: t.me/quick_sarkari

Q.15 'अपना लाल गँवाय के दर-दर माँगे भीख' लोकोक्ति का अर्थ निम्न में से होगा-1394

Ans

✔ 1. अपनी मूल्यवान वस्तु खोकर दूसरों का मोहताज बनना।

✘ 2. लाभ जहाँ से होता है वहीं खर्च हो जाता है।

✘ 3. स्वाभिमान की रक्षा नौकरी में नहीं हो सकती है।

✘ 4. जिसका बेटा नहीं रहता वह भीख माँगता है।

Question ID : **441009441674**
Option 1 ID : **4410091725378**
Option 2 ID : **4410091725379**
Option 3 ID : **4410091725380**
Option 4 ID : **4410091725377**

Comprehension:

निम्नलिखित अनुच्छेद को पढ़कर पूछे गए 21 से 25 प्रश्नों के उत्तर विकल्पों में से चयन करके रिक्त स्थानों भरिए।

स्वस्थ शरीर वाला मनुष्य ही संसार के सभी प्रकार के सुखों को भोग सकता है तथा (21) _____ जीवन बिता सकता है। स्वस्थ शरीर के लिए (22) _____ भोजन तथा व्यायाम दोनों ही अति आवश्यक हैं। व्यायाम करने का भी ढंग होता है। इसे करते समय सदा कुछ सावधानियाँ बरतनी चाहिए। पहली सावधानी यह है कि आयु, समय व शरीर की (23) _____ के अनुसार ही व्यायाम करना चाहिए। दूसरी सावधानी यह है कि सही व्यायाम का चुनाव करना चाहिए तथा व्यायाम की उचित मात्रा निश्चित करनी चाहिए। तीसरी सावधानी यह है कि शुद्ध वायु, प्रकाश वाले खुले स्थान में व्यायाम करना चाहिए। व्यायाम के अनेक लाभ हैं - इससे शरीर में शुद्ध रक्त का (24) _____ होता है। भोजन ठीक से पचता है, शरीर पुष्ट बन जाता है, (25) _____ कम अनुभव होती है तथा मस्तिष्क भी स्वस्थ रहता है।

SubQuestion No : 16

Q.16 निम्न विकल्पों में से सही शब्द चयन कर अनुच्छेद में रिक्त स्थान भरिए।(25)

Ans

✘ 1. थकाहारा

✘ 2. थकना

✔ 3. थकान

✘ 4. थकाना

Question ID : **441009469954**
Option 1 ID : **4410091836186**
Option 2 ID : **4410091836185**
Option 3 ID : **4410091836187**
Option 4 ID : **4410091836188**

QuickSarkari

Comprehension:

निम्नलिखित अनुच्छेद को पढ़कर पूछे गए 21 से 25 प्रश्नों के उत्तर विकल्पों में से चयन करके रिक्त स्थानों भरिए।

स्वस्थ शरीर वाला मनुष्य ही संसार के सभी प्रकार के सुखों को भोग सकता है तथा (21) _____ जीवन बिता सकता है। स्वस्थ शरीर के लिए (22) _____ भोजन तथा व्यायाम दोनों ही अति आवश्यक हैं। व्यायाम करने का भी ढंग होता है। इसे करते समय सदा कुछ सावधानियाँ बरतनी चाहिए। पहली सावधानी यह है कि आयु, समय व शरीर की (23) _____ के अनुसार ही व्यायाम करना चाहिए। दूसरी सावधानी यह है कि सही व्यायाम का चुनाव करना चाहिए तथा व्यायाम की उचित मात्रा निश्चित करनी चाहिए। तीसरी सावधानी यह है कि शुद्ध वायु, प्रकाश वाले खुले स्थान में व्यायाम करना चाहिए। व्यायाम के अनेक लाभ हैं - इससे शरीर में शुद्ध रक्त का (24) _____ होता है। भोजन ठीक से पचता है, शरीर पुष्ट बन जाता है, (25) _____ कम अनुभव होती है तथा मस्तिष्क भी स्वस्थ रहता है।

SubQuestion No : 17

Q.17 निम्न विकल्पों में से सही शब्द चयन कर अनुच्छेद में रिक्त स्थान भरिए।(21)

Ans

✗ 1. सुख - दुःख

✗ 2. सुखजीवी

✓ 3. सुखमय

✗ 4. सुखवंत

Question ID : **441009469950**
Option 1 ID : **4410091836170**
Option 2 ID : **4410091836171**
Option 3 ID : **4410091836172**
Option 4 ID : **4410091836169**

Comprehension:

निम्नलिखित अनुच्छेद को पढ़कर पूछे गए 21 से 25 प्रश्नों के उत्तर विकल्पों में से चयन करके रिक्त स्थानों भरिए।

स्वस्थ शरीर वाला मनुष्य ही संसार के सभी प्रकार के सुखों को भोग सकता है तथा (21) _____ जीवन बिता सकता है। स्वस्थ शरीर के लिए (22) _____ भोजन तथा व्यायाम दोनों ही अति आवश्यक हैं। व्यायाम करने का भी ढंग होता है। इसे करते समय सदा कुछ सावधानियाँ बरतनी चाहिए। पहली सावधानी यह है कि आयु, समय व शरीर की (23) _____ के अनुसार ही व्यायाम करना चाहिए। दूसरी सावधानी यह है कि सही व्यायाम का चुनाव करना चाहिए तथा व्यायाम की उचित मात्रा निश्चित करनी चाहिए। तीसरी सावधानी यह है कि शुद्ध वायु, प्रकाश वाले खुले स्थान में व्यायाम करना चाहिए। व्यायाम के अनेक लाभ हैं - इससे शरीर में शुद्ध रक्त का (24) _____ होता है। भोजन ठीक से पचता है, शरीर पुष्ट बन जाता है, (25) _____ कम अनुभव होती है तथा मस्तिष्क भी स्वस्थ रहता है।

SubQuestion No : 18

Q.18 निम्न विकल्पों में से सही शब्द चयन कर अनुच्छेद में रिक्त स्थान भरिए।(22)

Ans

✗ 1. पौरुष

✓ 2. पौष्टिक

✗ 3. पौरेय

✗ 4. पौसार

Question ID : **441009469951**
Option 1 ID : **4410091836173**
Option 2 ID : **4410091836174**
Option 3 ID : **4410091836175**
Option 4 ID : **4410091836176**

Comprehension:

निम्नलिखित अनुच्छेद को पढ़कर पूछे गए 21 से 25 प्रश्नों के उत्तर विकल्पों में से चयन करके रिक्त स्थानों भरिए।

स्वस्थ शरीर वाला मनुष्य ही संसार के सभी प्रकार के सुखों को भोग सकता है तथा (21) _____ जीवन बिता सकता है। स्वस्थ शरीर के लिए (22) _____ भोजन तथा व्यायाम दोनों ही अति आवश्यक हैं। व्यायाम करने का भी ढंग होता है। इसे करते समय सदा कुछ सावधानियाँ बरतनी चाहिए। पहली सावधानी यह है कि आयु, समय व शरीर की (23) _____ के अनुसार ही व्यायाम करना चाहिए। दूसरी सावधानी यह है कि सही व्यायाम का चुनाव करना चाहिए तथा व्यायाम की उचित मात्रा निश्चित करनी चाहिए। तीसरी सावधानी यह है कि शुद्ध वायु, प्रकाश वाले खुले स्थान में व्यायाम करना चाहिए। व्यायाम के अनेक लाभ हैं - इससे शरीर में शुद्ध रक्त का (24) _____ होता है। भोजन ठीक से पचता है, शरीर पुष्ट बन जाता है, (25) _____ कम अनुभव होती है तथा मस्तिष्क भी स्वस्थ रहता है।

SubQuestion No : 19

Q.19 निम्न विकल्पों में से सही शब्द चयन कर अनुच्छेद में रिक्त स्थान भरिए।(23)

Ans

✗ 1. मार्मिकता

✗ 2. योग्यता

✗ 3. शीलता

✓ 4. क्षमता

Question ID : **441009469952**
Option 1 ID : **4410091836180**
Option 2 ID : **4410091836177**
Option 3 ID : **4410091836178**
Option 4 ID : **4410091836179**

Comprehension:

निम्नलिखित अनुच्छेद को पढ़कर पूछे गए 21 से 25 प्रश्नों के उत्तर विकल्पों में से चयन करके रिक्त स्थानों भरिए।

स्वस्थ शरीर वाला मनुष्य ही संसार के सभी प्रकार के सुखों को भोग सकता है तथा (21) _____ जीवन बिता सकता है। स्वस्थ शरीर के लिए (22) _____ भोजन तथा व्यायाम दोनों ही अति आवश्यक हैं। व्यायाम करने का भी ढंग होता है। इसे करते समय सदा कुछ सावधानियाँ बरतनी चाहिए। पहली सावधानी यह है कि आयु, समय व शरीर की (23) _____ के अनुसार ही व्यायाम करना चाहिए। दूसरी सावधानी यह है कि सही व्यायाम का चुनाव करना चाहिए तथा व्यायाम की उचित मात्रा निश्चित करनी चाहिए। तीसरी सावधानी यह है कि शुद्ध वायु, प्रकाश वाले खुले स्थान में व्यायाम करना चाहिए। व्यायाम के अनेक लाभ हैं - इससे शरीर में शुद्ध रक्त का (24) _____ होता है। भोजन ठीक से पचता है, शरीर पुष्ट बन जाता है, (25) _____ कम अनुभव होती है तथा मस्तिष्क भी स्वस्थ रहता है।

SubQuestion No : 20

Q.20 निम्न विकल्पों में से सही शब्द चयन कर अनुच्छेद में रिक्त स्थान भरिए।(24)

Ans

✗ 1. संजनन

✗ 2. संसारी

✓ 3. संचार

✗ 4. संचालक

Question ID : **441009469953**
Option 1 ID : **4410091836184**
Option 2 ID : **4410091836182**
Option 3 ID : **4410091836181**
Option 4 ID : **4410091836183**

Quick Sarkari

Thank you for studying with QuickSarkari!

Get the latest Sarkari Naukri notifications, admit cards, results, answer keys and free previous-year papers first - follow us on WhatsApp and Telegram.

Visit www.quicksarkari.com

Join our WhatsApp Channel

https://whatsapp.com/channel/0029VaxxbrREquiPoXTWM229

Join our Telegram Channel

https://t.me/quick_sarkari

Share this PDF with your friends preparing for DSSSB exams.