Quick Sarkari

DSSSB PREVIOUS YEAR PAPER WITH ANSWER KEY

DSSSB Forest Guard

8 July 2026 · Shift 2

डीएसएसएसबी वन रक्षक – 8 जुलाई 2026, शिफ्ट 2 का प्रश्न पत्र, उत्तर कुंजी सहित

200	120 min	1 / −0.25	EN + HI
Questions / प्रश्न	Duration / समय	Marks per Q / अंक	Language / भाषा

Sections: General Intelligence and Reasoning Ability, General Awareness, Arithmetical and Numerical Ability, English Language and Comprehension, Hindi Language and Comprehension

INSIDE THIS PDF / इस PDF में

Question Paper in English + Hindi with Answer Key (correct option marked in green) + answer table Page 2–45
प्रश्न पत्र अंग्रेज़ी + हिंदी में, उत्तर कुंजी सहित (सही विकल्प हरे रंग में) + उत्तर तालिका

HOW TO USE THIS PAPER / इस पेपर का उपयोग कैसे करें

1. Attempt the paper first as a timed online mock test (link below).
   पहले नीचे दिए लिंक से इसे टाइमर के साथ ऑनलाइन मॉक टेस्ट के रूप में हल करें।
2. Check your score, section-wise analysis and solutions online.
   ऑनलाइन अपना स्कोर, खंड-वार विश्लेषण और हल देखें।
3. Use this PDF for revision. Correct answers are shown in green.
   दोहराने के लिए इस PDF का उपयोग करें। सही उत्तर हरे रंग में दिए गए हैं।

Attempt this paper as a FREE online mock test

इस पेपर को फ्री ऑनलाइन मॉक टेस्ट के रूप में हल करें – टाइमर, स्कोर और हल के साथ

https://quicksarkari.com/dsssb-forest-guard-08-july-2026-shift-2-mock-test/

All DSSSB Forest Guard papers and mock tests: **quicksarkari.com/dsssb-mock-test/#forest-guard**

Join WhatsApp Channel | Join Telegram Channel

DSSSB Forest Guard – Question Paper (English + Hindi)

DSSSB वन रक्षक – प्रश्न पत्र (अंग्रेज़ी + हिंदी)

Exam held on 8 July 2026, Shift 2 · 200 questions · correct answers marked ✔ in green
परीक्षा तिथि 8 जुलाई 2026, शिफ्ट 2 · 200 प्रश्न · सही उत्तर हरे रंग में ✔ से चिह्नित

> The official paper for this shift was in Hindi. The English version of each question is a translation prepared by QuickSarkari; the language-section questions are shown as asked.
> इस शिफ्ट का आधिकारिक प्रश्न पत्र हिंदी में था। प्रत्येक प्रश्न का अंग्रेज़ी संस्करण QuickSarkari द्वारा तैयार किया गया अनुवाद है; भाषा खंड के प्रश्न मूल रूप में दिए गए हैं।

General Intelligence and Reasoning Ability

Q.1 Which of the following letter-clusters should replace # and % so that the pattern and relationship followed between the letter-cluster pair on the left side of :: is the same as that on the right side of ::?
: FUY :: DKL : %

निम्नलिखित में से किन अक्षर-समूहों द्वारा # और % को प्रतिस्थापित किया जाना चाहिए ताकि :: के बाईं ओर के अक्षर-समूह युग्म के बीच अनुसरण किया गया पैटर्न और संबंध, :: के दाईं ओर के अक्षर-समूह युग्म के बीच अनुसरण किए गए पैटर्न और संबंध के समान हो?
: FUY :: DKL : %

(1) # = CEW , % = EIM
(2) # = EWX , % = FJN
(3) **# = EWX , % = EIM ✔**
(4) # = OHX, % = EIM

Q.2 In a certain way based on the English alphabetical order, CFEG is related to JMLN. In the same way, NQPR is related to UXWY. Following the same logic, to which of the following is RUTV related?

अंग्रेजी वर्णमाला क्रम पर आधारित एक निश्चित तरीके से, CFEG का संबंध JMLN से है। उसी प्रकार, NQPR का संबंध UXWY से है। समान तर्क का अनुसरण करते हुए, RUTV का संबंध निम्नलिखित में से किससे है?

(1) YAZC
(2) **YBAC ✔**
(3) YCZI
(4) YBZC

Q.3 Refer to the letter series given below and answer the question. Counting is to be done from left to right only.
(Left) U P N J U Z H S V N A E F U M X C E Z U X S X E L (Right)
In the English alphabetical series, how many letters are there between the seventh letter from the left end and the fourth letter from the right end?

नीचे दी गई अक्षर श्रृंखला का संदर्भ लें और प्रश्न का उत्तर दें। गिनती केवल बाएं से दाएं की जानी है।
(बाएं) U P N J U Z H S V N A E F U M X C E Z U X S X E L (दाएं)
अंग्रेजी वर्णमाला श्रृंखला में बाएं छोर से सातवें और दाएं छोर से चौथे अक्षर के बीच कितने अक्षर हैं?

(1) Eight / आठ
(2) Seven / सात
(3) **Ten / दस ✔**
(4) Five / पांच

Q.4 D is the brother of E. F is the brother of E. F is the father of G. G is the brother of H. How is D related to H?

D, E का भाई है। F, E का भाई है। F, G का पिता है। G, H का भाई है। D का H से क्या संबंध है?

(1) Brother / भाई

(2) Father / पिता

(3) Father's father / पिता का पिता

(4) Father's brother / पिता का भाई ✔

Q.5 In a certain code language, A + B means 'A is the mother of B'

A – B means 'A is the brother of B'

A x B means 'A is the wife of B'

A # B means 'A is the daughter of B'

Based on the above, if L - N + Z - K # P, then how is L related to P?

किसी निश्चित कूट भाषा में, A + B का अर्थ है कि 'A, B की माता है'

A – B का अर्थ है कि 'A, B का भाई है'

A x B का अर्थ है कि 'A, B की पत्नी है'

A # B का अर्थ है कि 'A, B की पुत्री है'

उपरोक्त के आधार पर, यदि L - N + Z - K # P है, तो L का P से क्या संबंध है?

(1) Sister's husband / बहन का पति

(2) Mother's brother / माता का भाई

(3) Husband's brother / पति का भाई

(4) Wife's brother / पत्नी का भाई ✔

Q.6 Which of the following letter-clusters should replace # and % so that the pattern and relationship followed between the letter-cluster pair on the left side of :: is the same as that on the right side of ::?

: MSY :: CIO : %

निम्नलिखित में से किन अक्षर-समूहों द्वारा # और % को प्रतिस्थापित किया जाना चाहिए ताकि :: के बाईं ओर के अक्षर-समूह युग्म के बीच अनुसरण किया गया पैटर्न और संबंध, :: के दाईं ओर के अक्षर-समूह युग्म के बीच अनुसरण किए गए पैटर्न और संबंध के समान हो?

: MSY :: CIO : %

(1) # = IOU % = GMS ✔

(2) # = IOU % = GMO

(3) # = IYU % = GMS

(4) # = IOU % = YMS

Q.7 A @ B means 'A is the husband of B'

A & B means 'A is the mother of B'

A # B means 'A is the daughter of B'

If M # N & O @ P & Q, then how is M related to P?

A @ B का अर्थ है कि 'A, B का पति है'

A & B का अर्थ है कि 'A, B की माता है'

A # B का अर्थ है कि 'A, B की पुत्री है'

यदि M # N & O @ P & Q है, तो M का P से क्या संबंध है?

(1) Daughter / पुत्री

(2) Husband's sister / पति की बहन ✔

(3) Father's sister / पिता की बहन

(4) Mother's mother / माता की माता

Q.8 Refer to the letter and symbol series given below and answer the question. Counting is to be done from left to right only.
(Left) J H % L # P Q @ T V & N S $ K R * W B £ Y (Right)
If all the letters are removed from this series, which of the following will be seventh from the right?
नीचे दी गई अक्षर और प्रतीक श्रृंखला का संदर्भ लें और प्रश्न का उत्तर दें। गिनती केवल बाएं से दाएं की जानी है।
(बाएं) J H % L # P Q @ T V & N S $ K R * W B £ Y (दाएं)
यदि इस श्रृंखला से सभी अक्षरों को हटा दिया जाए, तो निम्नलिखित में से कौन-सा दाएं से सातवाँ होगा?

(1) @
(2) &
(3) % ✔
(4) *

Q.9 In a certain code language, A x B means 'A is the mother of B'
A - B means 'A is the brother of B'
A + B means 'A is the wife of B'
A = B means 'A is the father of B'
Based on the above, if 'Q x F – D + Y = V', then how is Q related to V?
एक निश्चित कूट भाषा में, A x B का अर्थ है कि 'A, B की माता है'
A - B का अर्थ है कि 'A, B का भाई है'
A + B का अर्थ है कि 'A, B की पत्नी है'
A = B का अर्थ है कि 'A, B का पिता है'
उपरोक्त के आधार पर, यदि 'Q x F – D + Y = V' है, तो Q का V से क्या संबंध है?

(1) Mother's sister / माता की बहन
(2) Mother's mother / माता की माता ✔
(3) Mother / माता
(4) Sister / बहन

Q.10 A total of 152 persons are standing in a row facing north. Mr. Gong is 67th from the left end while Mr. Kang is 48th from the right end. How many persons are there between Mr. Gong and Mr. Kang?
सभी 152 व्यक्ति उत्तर की ओर अभिमुख होकर एक पंक्ति में खड़े हैं। मिस्टर गोंग बाएं छोर से 67वें स्थान पर हैं जबकि मिस्टर कांग दाएं छोर से 48वें स्थान पर हैं। मिस्टर गोंग और मिस्टर कांग के बीच कितने व्यक्ति हैं?

(1) 36
(2) 38
(3) 40
(4) 37 ✔

Q.11 Seven persons O, P, Q, R, W, X and Y are sitting around a circular table facing the centre. X sits to the immediate right of R. Only three persons sit between X and P when counted from the left of X. Only three persons sit between R and W when counted from the right of W. O sits to the immediate right of Y. How many persons sit between Q and Y when counted from the left of Y?
सात व्यक्ति O, P, Q, R, W, X और Y एक गोल मेज के परित: उसके केंद्र की ओर अभिमुख होकर बैठे हैं। X, R के ठीक दाईं ओर पड़ोस में बैठा है। X के बाईं ओर से गिनने पर, X और P के बीच केवल तीन व्यक्ति बैठे हैं। W के दाईं ओर से गिनने पर, R और W के बीच केवल तीन व्यक्ति बैठे हैं। O, Y के ठीक दाईं ओर पड़ोस में बैठा है। Y के बाईं ओर से गिनने पर, Q और Y के बीच कितने व्यक्ति बैठे हैं?

(1) Three / तीन
(2) Two / दो ✔
(3) One / एक
(4) Four / चार

Q.12 Refer to the following letter series and answer the given question. Counting is to be done from left to right only.
(Left) S N E T K Z Y H I Z V D E O P U R H A A A (Right)
How many such consonants are there, each of which is immediately preceded by a vowel and also immediately followed by a vowel?
निम्नलिखित अक्षर श्रृंखला का संदर्भ लीजिए और दिए गए प्रश्न का उत्तर दीजिए। गिनती केवल बाएं से दाएं की जानी है।
(बाएं) S N E T K Z Y H I Z V D E O P U R H A A A (दाएं)
ऐसे कितने व्यंजन हैं, जिनमें से प्रत्येक के ठीक पहले एक स्वर और ठीक बाद में भी एक स्वर है?

(1) Three / तीन
(2) None / एक भी नहीं
(3) One / एक ✔
(4) Two / दो

Q.13 This question is based on the five three-digit numbers given below.
(Left) 289 287 563 254 213 (Right)
(Example - 697 – First digit = 6, second digit = 9 and third digit = 7)
Note - All operations are to be done from left to right.
If the second digit of the second largest number is added to the third digit of the smallest number, what will be the result?
यह प्रश्न नीचे दी गई पांच, तीन-अंकीय संख्याओं पर आधारित है।
(बाएं) 289 287 563 254 213 (दाएं)
(उदाहरण - 697 – प्रथम अंक = 6, द्वितीय अंक = 9 और तृतीय अंक = 7)
नोट - सभी संक्रियाएं बाएं से दाएं की जानी चाहिए।
यदि दूसरी सबसे बड़ी संख्या के दूसरे अंक को सबसे छोटी संख्या के तीसरे अंक में जोड़ा जाए, तो परिणाम क्या प्राप्त होगा?

(1) 13
(2) 11 ✔
(3) 9
(4) 10

Q.14 A total of 211 persons are standing in a row facing north. EFG is 9th from the left end, while KLM is 18th from the right end. How many persons are there between EFG and KLM?
सभी 211 व्यक्ति एक पंक्ति में उत्तर दिशा की ओर अभिमुख होकर खड़े हैं। EFG बाएं छोर से 9वें स्थान पर है, जबकि KLM दाएं छोर से 18वें स्थान पर है। EFG और KLM के बीच कितने व्यक्ति हैं?

(1) 186
(2) 183
(3) 185
(4) 184 ✔

QuickSarkari.com | WhatsApp Channel | Telegram: t.me/quick_sarkari

Q.15 Seven persons, R, S, T, V, W, X, and Y, are sitting in a straight row facing north. Exactly five persons sit between X and S. Y sits to the immediate left of S, and exactly one person sits between Y and V. R sits somewhere to the left of T but to the right of W. Who sits third from the left end of the row?

सात व्यक्ति, R, S, T, V, W, X, और Y, उत्तर की ओर अभिमुख होकर एक सीधी पंक्ति में बैठे हैं। X और S के बीच ठीक पांच व्यक्ति बैठे हैं। Y, S के ठीक बाएं पड़ोस में बैठा है तथा Y और V के बीच ठीक एक व्यक्ति बैठा है। R, T के बाएं लेकिन W के दाएं किसी स्थान पर बैठा है। पंक्ति के बाएं छोर से तीसरे स्थान पर कौन बैठा है?

(1) W
(2) V
(3) T
(4) **R ✔**

Q.16 Six friends, A, B, C, D, E, F, have their exams on different days of a week, starting from Monday and ending on Saturday of the same week. C's exam is scheduled on Monday, D's exam is scheduled on Saturday, B's exam is between E and F, and A's exam is neither one day before nor one day after C.
If E's exam is scheduled immediately after C, whose exam is on Thursday?

छह मित्र, A, B, C, D, E, F की परीक्षा सप्ताह के अलग-अलग दिनों में है, जो सोमवार से शुरू होकर उसी सप्ताह के शनिवार को समाप्त होती है। यदि C की परीक्षा सोमवार को निर्धारित है, D की परीक्षा शनिवार को निर्धारित है, B की परीक्षा E और F के बीच है, A की परीक्षा C से एक दिन पहले या एक दिन बाद नहीं है।
यदि E की परीक्षा C के तुरंत बाद निर्धारित है, तो गुरुवार को किसकी परीक्षा है?

(1) A
(2) E
(3) D
(4) F

Q.17 Refer to the following letter, symbol series and answer the question. Counting is to be done from left to right only.
(Left) = & V Z E $ * R Ω H P + X ? U L W K B @ A (Right)
How many such symbols are there, each of which is immediately preceded by a vowel but not immediately followed by a vowel?

निम्नलिखित अक्षर, प्रतीक श्रृंखला का संदर्भ लीजिए और प्रश्न का उत्तर दीजिए। गिनती केवल बाएं से दाएं की जानी है।
(बाएं) = & V Z E $ * R Ω H P + X ? U L W K B @ A (दाएं)
ऐसे कितने प्रतीक हैं जिनमें से प्रत्येक के ठीक पहले एक स्वर है, लेकिन ठीक बाद में एक स्वर नहीं है?

(1) **One / एक ✔**
(2) Two / दो
(3) Three / तीन
(4) Four / चार

Q.18 In a row of 241 students facing north, Mr. Jim is 18th from the right end. If Mr. Lai is 23rd to the left of Mr. Jim, what is Mr. Lai's position from the left end of the row?

उत्तर दिशा की ओर मुख किए हुए 241 विद्यार्थियों की एक पंक्ति में, मि. जिम, दाएं छोर से 18वें स्थान पर हैं। यदि मि. लाई, मि. जिम के बाईं ओर 23वें स्थान पर हैं, तो पंक्ति के बाएं छोर से मि. लाई का स्थान क्या है?

(1) **201st / 201वां ✔**
(2) 200th / 200वां
(3) 202nd / 202वां
(4) 203rd / 203वां

Q.19 Study the five three-digit numbers given below and answer the given question.
(Left) 365 742 234 567 835 (Right)
(For example, 697 – First digit = 6, second digit = 9 and third digit = 7)
If the second digit of the largest number is added to the first digit of the smallest number, what will be the resultant number?

नीचे दी गई पाँच, तीन अंकीय संख्याओं का अध्ययन करें और दिए गए प्रश्न का उत्तर दें।
(बाएँ) 365 742 234 567 835 (दाएँ)
(उदाहरण के लिए, 697 – पहला अंक = 6, दूसरा अंक = 9 और तीसरा अंक = 7)
यदि सबसे बड़ी संख्या के दूसरे अंक को सबसे छोटी संख्या के पहले अंक में जोड़ा जाए, तो परिणामी संख्या क्या होगी?

(1) 8
(2) 5 ✔
(3) 6
(4) 11

Q.20 Seven persons U, V, W, C, D, E and F are sitting around a circular table facing the centre. Exactly two persons sit between C and E when counted from the left of C. D sits third to the left of F. V sits to the immediate right of F and V also sits second to the left of E. W does not sit adjacent to D. Who sits third to the right of U?

सात व्यक्ति U, V, W, C, D, E और F एक गोल मेज के परितः उसके केंद्र की ओर अभिमुख होकर बैठे हैं। C के बाईं ओर से गिनने पर, C और E के बीच ठीक दो व्यक्ति बैठे हैं। D, F के बाईं ओर तीसरे स्थान पर बैठा है। V, F के ठीक दाईं ओर पड़ोस में बैठा है और V, E के बाईं ओर दूसरे स्थान पर भी बैठा है। W, D के पड़ोस में नहीं बैठा है। U के दाईं ओर तीसरे स्थान पर कौन बैठा है?

(1) V ✔
(2) F
(3) W
(4) E

Q.21 Three of the following four letter-clusters are alike in a certain way based on the English alphabetical order and thus form a group. Which letter-cluster does NOT belong to that group?
(Note: The odd letter-cluster is not based on the number of consonants/vowels or their position in the letter-cluster.)

अंग्रेजी वर्णमाला क्रम के आधार पर, निम्नलिखित चार अक्षर-समूहों में से तीन किसी निश्चित तरीके से एकसमान हैं और इस प्रकार वे एक ग्रुप बनाते हैं। कौन-सा अक्षर-समूह, उस ग्रुप से संबंधित नहीं है?
(नोट: असंगत अक्षर-समूह, व्यंजनों/स्वरों की संख्या या उनकी स्थिति पर आधारित नहीं है।)

(1) HKG
(2) ORN
(3) KJI ✔
(4) RUQ

Q.22 If 'A' means '+', 'B' means '−', 'C' means '×' and 'D' means '÷', then what will come in place of the question mark '?' in the following equation?
34 A 42 D 6 B 4 C 7 = ?
यदि 'A' का अर्थ '+' है, 'B' का अर्थ '−' है, 'C' का अर्थ '×' है तथा 'D' का अर्थ '÷' है, तो निम्नलिखित समीकरण में प्रश्न-चिह्न '?' के स्थान पर क्या आएगा?
34 A 42 D 6 B 4 C 7 = ?

(1) 17
(2) **13 ✔**
(3) 15
(4) 11

Q.23 Three of the following four letter-cluster pairs are alike in a certain way based on the English alphabetical order and thus form a group. Which letter-cluster pair does NOT belong to that group?
(Note: The odd letter-cluster pair is not based on the number of consonants/vowels or their position in the letter-cluster.)
अंग्रेजी वर्णमाला क्रम के आधार पर, निम्नलिखित चार अक्षर-समूह युग्मों में से तीन एक निश्चित प्रकार से समान हैं और इस प्रकार एक ग्रुप बनाते हैं। कौन-सा अक्षर-समूह युग्म उस ग्रुप से संबंधित नहीं है?
(नोट: असंगत अक्षर-समूह युग्म, व्यंजनों/स्वरों की संख्या या उनकी स्थिति पर आधारित नहीं है।)

(1) AF-TQ
(2) **RW-HK ✔**
(3) ZE-SP
(4) EJ-XU

Q.24 If 1 is subtracted from each odd digit and 2 is added to each even digit in the number 541264325794, what will be the sum of the second digit from the left and the second digit from the right in the new number thus formed?
यदि संख्या 541264325794 के प्रत्येक विषम अंक से 1 घटाया जाए और प्रत्येक सम अंक में 2 जोड़ा जाए, तो इस प्रकार बनी नई संख्या में बाएं ओर से दूसरे और दाएं ओर से दूसरे अंकों का योग कितना होगा?

(1) 15
(2) **14 ✔**
(3) 12
(4) 13

Q.25 If 'A' means '÷', 'B' means '×', 'C' means '+' and 'D' means '−', then what will come in place of the question mark '?' in the following equation?
43 C 36 A 6 B 8 D 18 = ?
यदि 'A' का अर्थ '÷' है, 'B' का अर्थ '×' है, 'C' का अर्थ '+' है और 'D' का अर्थ '−' है, तो निम्नलिखित समीकरण में प्रश्न-चिह्न '?' के स्थान पर क्या आएगा?
43 C 36 A 6 B 8 D 18 = ?

(1) 71
(2) 75
(3) **73 ✔**
(4) 74

Q.26 If 'A' means '÷', 'B' means '×', 'C' means '+' and 'D' means '−', then what will come in place of the question mark (?) in the following equation?
3 C 6 B (5 C 4) A 3 D 7 = ?

यदि 'A' का अर्थ '÷' है, 'B' का अर्थ '×' है, 'C' का अर्थ '+' है और 'D' का अर्थ '−' है, तो निम्नलिखित समीकरण में प्रश्न-चिह्न (?) के स्थान पर क्या आएगा?
3 C 6 B (5 C 4) A 3 D 7 = ?

(1) 16
(2) 18
(3) 20
(4) 14 ✔

Q.27 Following a certain logic, 13 is related to 117. Following the same logic, 17 is related to 153. Following the same logic, to which of the following is 27 related?
(Note: Operations should be performed on the whole numbers, without breaking down the numbers into their constituent digits. E.g. 13 - Operations on 13 such as adding/subtracting/multiplying etc. to 13 can be performed. Breaking down 13 into 1 and 3 and then performing mathematical operations on 1 and 3 is not allowed.)

एक निश्चित तर्क का अनुसरण करते हुए 13 का संबंध 117 से है। समान तर्क का अनुसरण करते हुए, 17 का संबंध 153 से है। समान तर्क का अनुसरण करते हुए 27 का संबंध निम्नलिखित में से किससे है?
(नोट: संख्याओं को उनके घटक अंकों में तोड़े बिना संक्रियाएँ केवल पूर्ण संख्याओं पर की जानी है। उदाहरण के लिए, 13 लीजिए - 13 पर संक्रियाएँ, जैसे 13 में जोड़ना/घटाना/गुणा करना, की जा सकती हैं। 13 को 1 और 3 में तोड़ना और फिर 1 और 3 पर गणितीय संक्रियाएँ करने की अनुमति नहीं है।)

(1) 213
(2) 243 ✔
(3) 208
(4) 257

Q.28 Which of the following letter-number clusters will replace the question mark (?) to logically complete the given series?
YDG 26, AFI 30, CHK 34, EJM 38, ?

निम्नलिखित में से कौन-सा अक्षर-संख्या समूह, दी गई शृंखला को तार्किक रूप से पूर्ण बनाने के लिए प्रश्न-चिह्न (?) को प्रतिस्थापित करेगा?
YDG 26, AFI 30, CHK 34, EJM 38, ?

(1) GKO 42
(2) GLO 38
(3) HLO 42
(4) GLO 42 ✔

Q.29 If 1 is added to each odd digit and 2 is subtracted from each even digit in the number 5471283, what will be the sum of the largest and the smallest digits in the number thus formed?

यदि संख्या 5471283 में प्रत्येक विषम अंक में 1 जोड़ा जाए तथा प्रत्येक सम अंक में से 2 घटाया जाए, तो इस प्रकार बनी संख्या में सबसे बड़े तथा सबसे छोटे अंकों का योगफल कितना होगा?

(1) 4
(2) 6
(3) 7
(4) 8 ✔

Q.30 What will come in place of '?' in the given series?
7 10 24 44 92 ?
दी गई श्रृंखला में '?' के स्थान पर क्या आएगा?
7 10 24 44 92 ?

(1) 177
(2) **180** ✔
(3) 179
(4) 176

Q.31 What will come in place of '?' in the given series?
3 2 8 12 28 ?
दी गई श्रृंखला में '?' के स्थान पर क्या आएगा?
3 2 8 12 28 ?

(1) 53
(2) **52** ✔
(3) 50
(4) 51

Q.32 Which number from the given options will replace the question mark (?) in the following series?
4, 6, 18, ?, 60, 62
दिए गए विकल्पों में से कौन-सी संख्या, निम्नलिखित श्रृंखला में प्रश्न-चिह्न (?) को प्रतिस्थापित करेगी?
4, 6, 18, ?, 60, 62

(1) 22
(2) **20** ✔
(3) 54
(4) 26

QuickSarkari.com | WhatsApp Channel | Telegram: t.me/quick_sarkari

Q.33 Select the option in which the given figure is embedded. (Rotation is NOT allowed)



उस विकल्प का चयन करें, जिसमें दी गई आकृति अंतर्निहित है। (आकृति को घुमाने की अनुमति नहीं है)

(1) 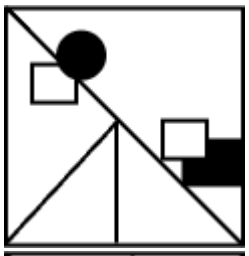

(2) 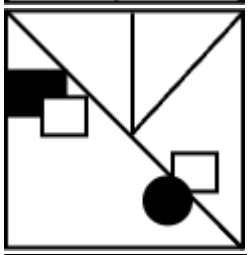

(3) 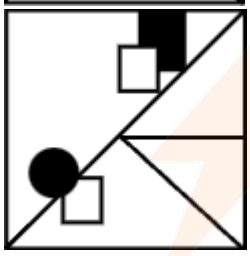

✔

(4) 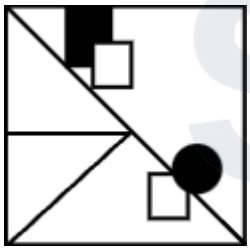

Quick Sarkari

Q.34 Select the figure from the given options that can replace the question mark (?) in the following series.

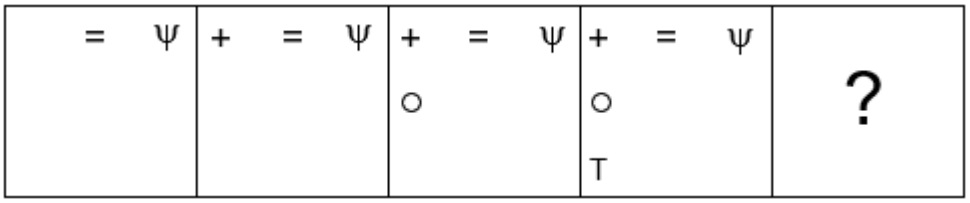

दिए गए विकल्पों में से उस आकृति का चयन कीजिए जो निम्नलिखित श्रृंखला में प्रश्न चिह्न (?) के स्थान पर आ सकती है।

(1)

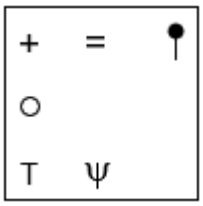

(2) ✔

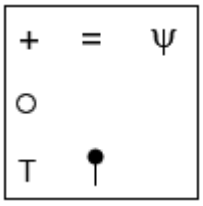

(3)

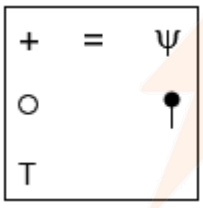

(4)



Q.35 Select the set in which the numbers are related in the same way as the numbers of the following sets are related.

(Note: Operations should be performed on the whole numbers, without breaking down the numbers into their constituent digits. E.g. 13 - Operations on 13 such as adding/subtracting/multiplying etc. to 13 can be performed. Breaking down 13 into 1 and 3 and then performing mathematical operations on 1 and 3 is not allowed.)

(18, 396, 22)

(16, 256, 16)

उस समुच्चय का चयन कीजिए जिसमें संख्याएँ उसी प्रकार से संबंधित हैं जिस प्रकार से निम्नलिखित समुच्चयों की संख्याएँ संबंधित हैं।

(नोट: संख्याओं को उनके घटक अंकों में तोड़े बिना संक्रियाएँ केवल पूर्ण संख्याओं पर की जानी है। उदाहरण के लिए, 13 लीजिए - 13 पर संक्रियाएँ, जैसे 13 में जोड़ना/घटाना/गुणा करना, की जा सकती हैं। 13 को 1 और 3 में तोड़ना और फिर 1 और 3 पर गणितीय संक्रियाएँ करने की अनुमति नहीं है।)

(18, 396, 22)

(16, 256, 16)

(1) (9, 138, 15)

(2) (21, 507, 24)

(3) (3, 57, 19) ✔

(4) (46, 693, 15)

QuickSarkari.com | WhatsApp Channel | Telegram: t.me/quick_sarkari

Q.36 Three of the following four letter-cluster pairs are alike in a certain way based on the English alphabetical order and thus form a group. Which letter-cluster pair does NOT belong to that group?
(Note: The odd letter-cluster pair is not based on the number of consonants/vowels or their position in the letter-cluster.)

अंग्रेजी वर्णमाला क्रम के आधार पर, निम्नलिखित चार अक्षर-समूह युग्मों में से तीन किसी निश्चित तरीके से एकसमान हैं और इस प्रकार वे एक ग्रुप बनाते हैं। कौन-सा अक्षर-समूह युग्म, उस ग्रुप से संबंधित नहीं है?
(नोट: असंगत अक्षर-समूह युग्म, व्यंजनों/स्वरों की संख्या या उनकी स्थिति पर आधारित नहीं है।)

(1) HG - DC
(2) UT - QO ✔
(3) RQ - NM
(4) KJ - GF

Q.37 Based on the English alphabetical order, what should come in place of the question mark (?) in the given series?
RWZD BGJN LQTX VADH ?

अंग्रेजी वर्णमाला क्रम के आधार पर दी गई श्रृंखला में प्रश्न-चिह्न (?) के स्थान पर क्या आना चाहिए?
RWZD BGJN LQTX VADH ?

(1) FRTY
(2) FKNR ✔
(3) FRNK
(4) FKRN

Q.38 Two sets of numbers are given below. In each set, certain mathematical operations on the first number result in the second number. Similarly, certain mathematical operations on the second number result in the third number, and so on. Which of the given options follows the same set of operations as in the given sets?
(Note: Operations should be performed on the whole numbers, without breaking down the numbers into their constituent digits. E.g. 13 - Operations on 13 such as adding/subtracting/multiplying etc. to 13 can be performed. Breaking down 13 into 1 and 3 and then performing mathematical operations on 1 and 3 is not allowed.)
16 – 48 – 96 – 288, 11 – 33 – 66 – 198

नीचे संख्याओं के दो समूह दिए गए हैं। प्रत्येक समूह में, पहली संख्या पर कुछ गणितीय संक्रियाएँ करने से दूसरी संख्या प्राप्त होती है। इसी प्रकार, दूसरी संख्या पर कुछ गणितीय संक्रियाएँ करने से तीसरी संख्या प्राप्त होती है, और इसी प्रकार आगे भी संख्याएं प्राप्त होती हैं। दिए गए विकल्पों में से कौन-सा विकल्प दिए गए समूहों में समान संक्रियाओं का अनुसरण करता है?
(नोट: संख्याओं को उनके घटक अंकों में तोड़े बिना संक्रियाएँ केवल पूर्ण संख्याओं पर की जानी है। उदाहरण के लिए, 13 लीजिए - 13 पर संक्रियाएँ, जैसे 13 में जोड़ना/घटाना/गुणा करना, की जा सकती हैं। 13 को 1 और 3 में तोड़ना और फिर 1 और 3 पर गणितीय संक्रियाएँ करने की अनुमति नहीं है।)
16 – 48 – 96 – 288, 11 – 33 – 66 – 198

(1) 12 – 36 – 72 – 144
(2) 15 – 30 – 60 – 180
(3) 9 – 27 – 54 – 162 ✔
(4) 7 – 21 – 42 – 84

Q.39 Select the set in which the numbers are related in the same way as the numbers of the following sets are related.
(NOTE: Operations should be performed on the whole numbers, without breaking down the numbers into their constituent digits. E.g. 13 – Operations on 13 such as adding/subtracting/multiplying etc. can be performed only on 13. Breaking down 13 into 1 and 3 and then performing mathematical operations on 1 and 3 is not allowed.)
(44, 485, 23)
(20, 5, 5)
उस समुच्चय का चयन कीजिए जिसमें संख्याएं उसी प्रकार संबंधित हैं जिस प्रकार निम्नलिखित समुच्चयों की संख्याएं संबंधित हैं।
(नोट: संख्याओं को उनके घटक अंकों में तोड़े बिना संक्रियाएं केवल पूर्ण संख्याओं पर की जानी चाहिए। उदाहरण के लिए 13 लीजिए – 13 पर संक्रियाएं, जैसे कि 13 में जोड़ना/घटाना/गुणा करना आदि, केवल 13 पर की जा सकती हैं। 13 को 1 और 3 में तोड़ना तथा फिर 1 और 3 पर गणितीय संक्रियाएं करने की अनुमति नहीं है।)
(44, 485, 23)
(20, 5, 5)

(1) (24, 505, 23) ✔
(2) (46, 95, 12)
(3) (33, 405, 21)
(4) (37, -36, 2)

Q.40 In the following triads, each group of letters is related to the next letter-cluster following a certain logic. Select the letter-cluster from the given options that follows the same logic.
PARENTS - ARENTSP - RENTSPA SCIENCE - CIENCES - IENCESC
निम्नलिखित त्रिकों में, अक्षरों का प्रत्येक समूह एक निश्चित तर्क का अनुसरण करते हुए अगले अक्षर-समूह से संबंधित है। दिए गए विकल्पों में से उस अक्षर-समूह का चयन कीजिए जो समान तर्क का अनुसरण करता है।
PARENTS - ARENTSP - RENTSPA SCIENCE - CIENCES - IENCESC

(1) EXPOSED - XPSOEDE - POSEDEX
(2) EXPOSED - XPOSEDE - POSEDEX ✔
(3) EXPOSED - XPOSEDE - POSDEEX
(4) EXPOSED - XPOESDE - POSEDEX

General Awareness

Q.41 At the AI Impact Summit 2026, which declaration was adopted as a shared global framework for collaborative, trustworthy, resilient and efficient Artificial Intelligence?
AI इम्पैक्ट समिट 2026 में, सहयोगात्मक, विश्वसनीय, लचीले और कुशल आर्टिफिशियल इंटेलिजेंस के लिए किस घोषणा को किसी साझा वैश्विक ढांचे के रूप में अपनाया गया था?

(1) Hyderabad Declaration on Digital Innovation / डिजिटल इनोवेशन पर हैदराबाद घोषणा
(2) Mumbai Declaration on Artificial Intelligence / आर्टिफिशियल इंटेलिजेंस पर मुंबई घोषणा
(3) Bengaluru Declaration on Responsible AI / उत्तरदायी AI पर बेंगलुरु घोषणा
(4) New Delhi Declaration on AI Impact / AI इम्पैक्ट पर नई दिल्ली घोषणा ✔

Q.42 Which country is collaborating with India on the Chandrayaan-5 mission approved by the National Space Commission in October 2024?

अक्टूबर 2024 में राष्ट्रीय अंतरिक्ष आयोग द्वारा अनुमोदित चंद्रयान-5 मिशन पर कौन-सा देश भारत के साथ सहयोग कर रहा है?

(1) Russia / रूस

(2) Japan / जापान ✔

(3) China / चीन

(4) United States of America / संयुक्त राज्य अमेरिका

Q.43 Who was the political guru of Mahatma Gandhi in India?

भारत में महात्मा गांधी के राजनीतिक गुरु कौन थे?

(1) Gopal Krishna Gokhale / गोपाल कृष्ण गोखले ✔

(2) Motilal Nehru / मोतीलाल नेहरू

(3) Dayanand Saraswati / दयानंद सरस्वती

(4) Rabindranath Tagore / रवींद्र नाथ टैगोर

Q.44 According to the Department of Science and Technology, Government of India, how many startups were selected under the National Quantum Mission in November 2024?

भारत सरकार के विज्ञान और प्रौद्योगिकी विभाग के अनुसार, नवंबर 2024 में राष्ट्रीय क्वांटम मिशन के तहत कितने स्टार्टअप्स का चयन किया गया था?

(1) Ten / दस

(2) Three / तीन

(3) Five / पांच

(4) Eight / आठ ✔

Q.45 What is the name of the nuclear-powered submarine launched by Russia in March 2025, which is capable of travelling at several times the speed of sound and is armed with hypersonic Zircon missiles?

मार्च 2025 में रूस द्वारा लॉन्च की गई परमाणु-संचालित उस पनडुब्बी का नाम क्या है, जो ध्वनि की गति से कई गुना अधिक गति से यात्रा करने में सक्षम है तथा हाइपरसोनिक ज़िरकॉन मिसाइलों से लैस है?

(1) Perm / पर्म (Perm) ✔

(2) Nusub / नुसुब (Nusub)

(3) Mimey / मिमे (Mimey)

(4) Hypto / हाइप्टो (Hypto)

Q.46 Which of the following was NOT a feature of the Mesolithic Age?

निम्नलिखित में से कौन-सी विशेषता मध्य-पाषाण युग की नहीं थी?

(1) Use of microliths / सूक्ष्म पाषाण का उपयोग

(2) Rise in temperature / तापमान में वृद्धि

(3) Beginning of agriculture / कृषि की शुरुआत ✔

(4) Fishing and domestication of animals / मछली पकड़ना और पशुओं को पालतू बनाना

Q.47 In Tibetan Buddhist painting, Buddhist deities or stories are usually depicted on cotton or silk cloth, which is called _____.

तिब्बती बौद्ध चित्रकला में सामान्यतः सूती या रेशमी कपड़े पर बौद्ध देव या कहानियों का चित्रण किया जाता है, जिसे _____ कहा जाता है।

(1) Kalamkari painting / कलमकारी चित्रकला

(2) **Thangka painting / थंका चित्रकला ✔**

(3) Madhubani painting / मधुबनी चित्रकला

(4) Pithora painting / पिथोरा चित्रकला

Q.48 Why was emphasis laid on linking climate action with the Sustainable Development Goals at the World Sustainable Development Summit 2025 held in March 2025?

मार्च 2025 में आयोजित विश्व संधारणीय विकास 2025 शिखर सम्मेलन में जलवायु कार्रवाई को संधारणीय विकास लक्ष्यों से जोड़ने पर बल क्यों दिया गया?

(1) To ignore social issues in climate action / जलवायु कार्रवाई में सामाजिक मुद्दों की उपेक्षा करने के लिए

(2) **To tackle poverty, inequality and the environment simultaneously / गरीबी, असमानता और पर्यावरण से एक साथ निपटने के लिए ✔**

(3) To prioritise industrialisation over sustainability / संधारणीयता के स्थान पर औद्योगीकरण को प्राथमिकता देने के लिए

(4) To focus on short-term economic gains / अल्पकालिक आर्थिक लाभ पर फोकस करने के लिए

Q.49 When was the Rowlatt Act passed by the Imperial Legislative Council?

इंपीरियल लेजिस्लेटिव काउंसिल द्वारा रॉलेट एक्ट कब पारित किया गया था?

(1) **1919 ✔**

(2) 1926

(3) 1923

(4) 1921

Q.50 Who among the following wrote the novel 'Godaan'?

'गोदान' उपन्यास निम्नलिखित में से किसने लिखा था?

(1) **Munshi Premchand / मुंशी प्रेमचंद ✔**

(2) Rabindranath Tagore / रवीन्द्रनाथ टैगोर

(3) Harivansh Rai Bachchan / हरिवंश राय बच्चन

(4) Mahatma Gandhi / महात्मा गांधी

Q.51 Who among the following was posthumously awarded the Padma Vibhushan in the field of Literature and Education in the year 2025?

निम्नलिखित में से किसे साहित्य और शिक्षा के क्षेत्र में वर्ष 2025 में मरणोपरांत पद्म विभूषण से सम्मानित किया गया?

(1) Duvvur Nageshwar Reddy / दुव्वुर नागेश्वर रेड्डी

(2) Kumudini Rajnikant Lakhia / कुमुदिनी रजनीकांत लाखिया

(3) Osamu Suzuki / ओसामू सुजुकी

(4) **M.T. Vasudevan Nair / एम.टी. वासुदेवन नायर ✔**

Q.52 What is the primary objective of this initiative of Chhattisgarh to link forest ecosystem services with Green GDP?

वन पारितंत्र सेवाओं को हरित GDP से जोड़ने की छत्तीसगढ़ की इस पहल का प्राथमिक उद्देश्य क्या है?

(1) To integrate environmental conservation and economic development / पर्यावरण संरक्षण और आर्थिक विकास को एकीकृत करना ✔

(2) To promote eco-tourism / पर्यावरणीय पर्यटन को बढ़ावा देना

(3) To increase the export of timber / इमारती लकड़ी का निर्यात बढ़ाना

(4) To privatise forest land / वन भूमि का निजीकरण करना

Q.53 Which of the following Post-Gupta rulers organised a famous religious assembly at Kannauj to propagate Mahayanaism?

निम्नलिखित में से किस गुप्तोत्तर (Post-Gupta) शासक ने महायान धर्म (Mahayanaism) के प्रचार के लिए कन्नौज में एक प्रसिद्ध धार्मिक सभा का आयोजन किया था?

(1) Yashovarman / यशोवर्मन

(2) Harshavardhana / हर्षवर्धन ✔

(3) Shashanka / शशांक

(4) Bhaskaravarman / भास्करवर्मन

Q.54 Consider the following statements:

I. As per information notified in April 2025, a rare earth metal deposit has been discovered in Kazakhstan, with estimated resources of more than 20 million metric tonnes.

2. The metal deposit has been found at a depth of up to 300 metres.

3. If confirmed, Kazakhstan will rank second, after China and Brazil, in terms of the size of the deposit.

Which of the above statements is/are correct with reference to the metal deposit discovered by the geologists of Kazakhstan?

निम्नलिखित कथनों पर विचार कीजिए:

I. अप्रैल 2025 में अधिसूचित जानकारी के अनुसार, कजाकिस्तान में दुर्लभ पृथ्वी धातु का एक निक्षेप खोजा गया है, जिसका अनुमानित संसाधन 20 मिलियन मीट्रिक टन से अधिक है।

2. धातु निक्षेप 300 मीटर तक की गहराई में पाया गया है।

3. यदि पुष्टि हो जाती है, तो निक्षेप के आकार के मामले में कजाकिस्तान, चीन और ब्राजील के बाद दूसरे स्थान पर आ जाएगा।।

कजाकिस्तान के भूवैज्ञानिकों द्वारा खोजे गए धातु निक्षेप के संदर्भ में उपरोक्त कथनों में से कौन-सा/से कथन सही है/हैं?

(1) Only I and III / केवल I और III

(2) Only I / केवल I

(3) I, II and III / I, II और III ✔

(4) Only I and II / केवल I और II

Q.55 Who was the Governor-General when the Bengal Sati Regulation was passed?

जब बंगाल सती विनियम पारित हुआ था, तब गवर्नर जनरल कौन थे?

(1) William Bentinck / विलियम बेंटिंक ✔

(2) Dufferin / डफरिन

(3) Curzon / कर्जन

(4) Ripon / रिपन

Q.56 In 2024, Sumant Sinha co-chaired which group focused on decarbonisation efforts?
2024 में सुमंत सिन्हा ने विकार्बनन प्रयासों पर केंद्रित किस समूह की सह-अध्यक्षता की थी?

(1) The World Economic Forum's Alliance of CEO Climate Leaders / वर्ल्ड इकोनॉमिक फोरम का एलायंस ऑफ CEO क्लाइमेट लीडर्स (The World Economic Forum's Alliance of CEO Climate Leaders) ✔

(2) The International Renewable Energy Agency (IRENA) / इंटरनेशनल रिन्यूएबल एनर्जी एजेंसी (The International Renewable Energy Agency - IRENA)

(3) The World Bank's Climate Change Advisory Board / वर्ल्ड बैंक का क्लाइमेट चेंज एडवाइजरी बोर्ड (The World Bank's Climate Change Advisory Board)

(4) The United Nations' Climate Action Coalition / यूनाइटेड नेशंस का क्लाइमेट एक्शन कोएलिशन (The United Nations' Climate Action Coalition)

Q.57 After the decline of the Kushanas, which of the following powerful dynasties emerged in North India?
कुषाणों के पतन के बाद, उत्तर भारत में निम्नलिखित में से किस शक्तिशाली राजवंश का उदय हुआ?

(1) Gupta dynasty / गुप्त राजवंश ✔

(2) Maurya dynasty / मौर्य राजवंश

(3) Satavahana dynasty / सातवाहन राजवंश

(4) Shunga dynasty / शुंग राजवंश

Q.58 In January 2025, who among the following was conferred the Major Dhyan Chand Khel Ratna Award?
जनवरी 2025 में, निम्नलिखित में से किसे मेजर ध्यानचंद खेल रत्न पुरस्कार से सम्मानित किया गया था?

(1) Manu Bhaker / मनु भाकर ✔

(2) Pankaj Advani / पंकज आडवाणी

(3) P. V. Sindhu / पी. वी. सिंधु

(4) Rohit Sharma / रोहित शर्मा

Q.59 Which of the following percussion instruments is used in Carnatic classical music?
कर्नाटक शास्त्रीय संगीत में निम्नलिखित में से किस आघात वाद्य यंत्र (percussion instruments) का उपयोग किया जाता है?

(1) Shehnai / शहनाई

(2) Tabla / तबला

(3) Santoor / संतूर

(4) Mridangam / मृदंगम ✔

Q.60 How many Nagar Vans and Nagar Vatikas have been targeted under the Nagar Van Yojana by 2026-27?
2026-27 तक नगर वन योजना के अंतर्गत कितने नगर वनों और नगर वाटिकाओं का लक्ष्य निर्धारित किया गया है?

(1) 400 Nagar Vans and 600 Nagar Vatikas / 400 नगर वन और 600 नगर वाटिकाएँ

(2) 600 Nagar Vans and 400 Nagar Vatikas / 600 नगर वन और 400 नगर वाटिकाएँ ✔

(3) 500 Nagar Vans and 500 Nagar Vatikas / 500 नगर वन और 500 नगर वाटिकाएँ

(4) 300 Nagar Vans and 700 Nagar Vatikas / 300 नगर वन और 700 नगर वाटिकाएँ

Q.61 Which of the following Articles of the Indian Constitution mentions remedies for the enforcement of Fundamental Rights?
भारतीय संविधान के निम्नलिखित में से किस अनुच्छेद में मौलिक अधिकारों के प्रवर्तन के लिए उपचारों का उल्लेख किया गया है?

(1) Article 21 / अनुच्छेद 21

(2) Article 32 / अनुच्छेद 32 ✔

(3) Article 12 / अनुच्छेद 12

(4) Article 44 / अनुच्छेद 44

Q.62 In the A.K. Gopalan case (1950), what was the Supreme Court's interpretation of Article 21 of the Indian Constitution?

ए.के. गोपालन मामले (1950) में, भारतीय संविधान के अनुच्छेद 21 की सर्वोच्च न्यायालय की व्याख्या क्या थी?

(1) It provided protection against arbitrariness of both the executive and the legislature. / इसने कार्यपालिका और विधायिका दोनों की मनमानी के खिलाफ सुरक्षा प्रदान की।

(2) It protected personal liberty only against arbitrary executive action and not against legislative action. / इसने व्यक्तिगत स्वतंत्रता को केवल मनमानी कार्यकारी कार्रवाई के खिलाफ संरक्षित किया, विधायी कार्रवाई के खिलाफ नहीं। ✔

(3) It emphasised the importance of substantive due process. / इसने मूलभूत सम्यक प्रक्रिया के महत्व पर बल दिया।

(4) It declared preventive detention laws unconstitutional. / इसने निवारक निरोध कानूनों को असंवैधानिक घोषित कर दिया।

Q.63 Which nutrients are mainly included in a balanced human diet for the growth and repair of the body?

शरीर की वृद्धि और मरम्मत के लिए संतुलित मानव आहार में मुख्य रूप से कौन-से पोषक तत्व शामिल होते हैं?

(1) Food rich in dietary fibre / आहार फाइबर युक्त भोजन

(2) Protein-rich foods / प्रोटीन से भरपूर खाद्य पदार्थ ✔

(3) Starchy food items / स्टार्च-युक्त खाद्य सामग्री

(4) Sources of fatty acids / वसीय अम्ल के स्रोत

Q.64 What is the main objective of the Fundamental Duty related to 'developing the scientific temper, humanism and the spirit of inquiry and reform'?

'वैज्ञानिक दृष्टिकोण (scientific temper), मानववाद और ज्ञानार्जन तथा सुधार की भावना का विकास करना' से संबंधित मौलिक कर्तव्य का मुख्य उद्देश्य क्या है?

(1) To encourage rational thinking and progressive values in society / समाज में तर्कसंगत चिंतन और प्रगतिशील मूल्यों को प्रोत्साहित करना ✔

(2) To preserve cultural traditions / सांस्कृतिक परंपराओं को संरक्षित करना

(3) To restrict freedom of thought and expression / विचार और अभिव्यक्ति की स्वतंत्रता को प्रतिबंधित करना

(4) To promote religious practices and rituals / धार्मिक प्रथाओं और अनुष्ठानों को बढ़ावा देना

Q.65 How are tertiary activities different from primary and secondary activities?

तृतीयक गतिविधियां, प्राथमिक और द्वितीयक गतिविधियों से किस प्रकार भिन्न हैं?

(1) They focus only on rural areas / वे केवल ग्रामीण क्षेत्रों पर केंद्रित होती हैं

(2) They involve services rather than goods / इनमें वस्तुओं के बजाय, सेवाएं शामिल होती हैं ✔

(3) They produce raw materials / वे कच्चे माल का उत्पादन करती हैं

(4) They are related to natural resources / वे प्राकृतिक संसाधनों से संबंधित होती हैं

Q.66 Which of the following factors most accurately explains the difference in temperature between the Northern Plains and the Deccan Plateau during winter?

निम्नलिखित में से कौन-सा कारक, शीत ऋतु में उत्तरी मैदानों और दक्कन के पठार के बीच तापमान में अंतर की सर्वाधिक सटीक व्याख्या करता है?

(1) Difference in land use / भूमि उपयोग में अंतर

(2) Presence of the Inter Tropical Convergence Zone (ITCZ) / अंतः उष्णकटिबंधीय अभिसरण क्षेत्र (ITCZ) की उपस्थिति

(3) Moderating influence of the sea on the Deccan Plateau / दक्कन पठार पर समुद्र का समकारी प्रभाव ✔

(4) Difference in vegetation density / वनस्पति घनत्व में अंतर

Q.67 Which of the following is a key feature of tertiary activities?

निम्नलिखित में से कौन-सी, तृतीयक गतिविधियों की एक प्रमुख विशेषता है?

(1) Always being located in rural areas / सदैव ग्रामीण क्षेत्रों में स्थित होना

(2) Producing tangible goods / मूर्त वस्तुओं का उत्पादन करना

(3) **Providing services to people or industries / लोगों या उद्योगों को सेवाएं प्रदान करना ✓**

(4) Involving the extraction of natural resources / प्राकृतिक संसाधनों के निष्कर्षण को शामिल करना

Q.68 Which major infrastructure project launched in 2017 aims to enhance national highway connectivity across India and improve logistics efficiency?

2017 में शुरू की गई किस प्रमुख अवसंरचना परियोजना का उद्देश्य भारत भर में राष्ट्रीय राजमार्ग कनेक्टिविटी को बढ़ाना और लॉजिस्टिक्स दक्षता में सुधार करना है?

(1) **Bharatmala Pariyojana / भारतमाला परियोजना ✓**

(2) Sagarmala Programme / सागरमाला कार्यक्रम

(3) Dedicated Freight Corridor Programme / डेडिकेटेड फ्रेट कॉरिडोर कार्यक्रम

(4) PM Gati Shakti National Master Plan / प्रधानमंत्री गतिशक्ति राष्ट्रीय मास्टर प्लान

Q.69 Which of the following instruments is commonly used to measure the temperature of an object?

किसी वस्तु के तापमान को मापने के लिए सामान्यतः निम्नलिखित में से किस उपकरण का उपयोग किया जाता है?

(1) Voltmeter / वोल्टमीटर

(2) Ammeter / एमीटर

(3) Barometer / बैरोमीटर

(4) **Thermometer / थर्मामीटर ✓**

Q.70 What is the primary objective of the Agriculture Infrastructure Fund (AIF) scheme launched in 2020?

2020 में शुरू की गई कृषि अवसंरचना निधि (AIF) योजना का प्राथमिक उद्देश्य क्या है?

(1) To enhance agricultural export competitiveness / कृषि निर्यात प्रतिस्पर्धिता बढ़ाना

(2) **To provide support for post-harvest storage and logistics facilities / शस्योत्तर भंडारण और संभारिकी सुविधाओं में सहायता प्रदान करना ✓**

(3) To expand crop insurance coverage nationwide / फसल बीमा कवरेज का देशव्यापी विस्तार करना

(4) To provide direct income support to farmers / किसानों को प्रत्यक्ष आय सहायता प्रदान करना

Q.71 Which of the following indicators best reflects India's integration into the global economy?

निम्नलिखित में से कौन-सा संकेतक, भारत की वैश्विक अर्थव्यवस्था में एकीकरण को सर्वोत्तम रूप से दर्शाता है?

(1) Expansion of the Public Distribution System / सार्वजनिक वितरण प्रणाली का विस्तार

(2) Increase in agricultural subsidies / कृषि सब्सिडी में वृद्धि

(3) Increase in fiscal deficit / राजकोषीय घाटे में वृद्धि

(4) **Increase in Foreign Direct Investment (FDI) inflows / प्रत्यक्ष विदेशी निवेश (FDI) अंतर्वाह में वृद्धि ✓**

Q.72 Which of the following Articles addresses the citizenship rights of certain persons of Indian origin residing outside India?

निम्नलिखित में से कौन-सा अनुच्छेद भारत के बाहर रहने वाले कुछ भारतीय मूल के व्यक्तियों के नागरिकता अधिकारों को संबोधित करता है?

(1) Article 10 / अनुच्छेद 10

(2) Article 9 / अनुच्छेद 9

(3) Article 7 / अनुच्छेद 7

(4) **Article 8 / अनुच्छेद 8 ✓**

Q.73 Which of the following is the main objective of establishing wildlife sanctuaries in India?
भारत में वन्यजीव अभयारण्यों की स्थापना का मुख्य उद्देश्य निम्नलिखित में से क्या है?

(1) To protect natural vegetation / प्राकृतिक वनस्पति की रक्षा करना
(2) **To protect wild animals in their natural habitat / वन्य जीवों को उनके प्राकृतिक आवास में सुरक्षित रखना ✔**
(3) To grow commercial crops / व्यावसायिक फसलें उगाना
(4) To promote tourism / पर्यटन को बढ़ावा देना

Q.74 Which of the following Articles of the Constitution of India provides that when the offices of both the Speaker and the Deputy Speaker are vacant, the President shall appoint a member of the Lok Sabha to perform the duties of the Speaker?
भारत के संविधान के निम्नलिखित में से कौन-सा अनुच्छेद यह प्रावधान करता है कि जब अध्यक्ष और उपाध्यक्ष का पद रिक्त हो, तो राष्ट्रपति लोकसभा के एक सदस्य को अध्यक्ष के कर्तव्यों का पालन करने के लिए नियुक्त करेगा?

(1) **Article 95 (1) / अनुच्छेद 95 (1) ✔**
(2) Article 76 (3) / अनुच्छेद 76 (3)
(3) Article 90 (1) / अनुच्छेद 90 (1)
(4) Article 85 (2) / अनुच्छेद 85 (2)

Q.75 In plant morphology, which of the following correctly defines a 'node'?
पादपों की आकारिकी में, निम्नलिखित में से कौन-सा 'पर्वसंधि (node)' को सही तरीके से परिभाषित करता है?

(1) **The part of the stem where leaves arise / तने का वह भाग जहाँ पत्तियाँ निकलती हैं ✔**
(2) The portion between two adjacent leaves on the stem / तने पर दो आसन्न पत्तियों के बीच का भाग
(3) The base of the flower from which sepals arise / पुष्प का आधार जहाँ से बाह्यदल निकलते हैं
(4) The tip of the root where absorption takes place / जड़ का वह सिरा जहाँ अवशोषण होता है

Q.76 Which of the following Schedules of the Indian Constitution lists the powers, responsibilities and authority of the Municipalities?
भारतीय संविधान की निम्नलिखित में से किस अनुसूची में नगरपालिकाओं की शक्तियों, उत्तरदायित्वों और प्राधिकार को सूचीबद्ध किया गया है?

(1) Tenth Schedule / दसवीं अनुसूची
(2) Eleventh Schedule / ग्यारहवीं अनुसूची
(3) Ninth Schedule / नौवीं अनुसूची
(4) **Twelfth Schedule / बारहवीं अनुसूची ✔**

Q.77 Which of the following Union Territories is closest to the Maldives?
निम्नलिखित में से कौन-सा केंद्र शासित प्रदेश मालदीव के निकटतम है?

(1) Daman and Diu / दमन और दीव
(2) Andaman and Nicobar Islands / अंडमान और निकोबार द्वीप समूह
(3) Puducherry / पुडुचेरी
(4) **Lakshadweep / लक्षद्वीप ✔**

Q.78 How did the New Economic Policy of 1991 aim to create a more competitive environment in the Indian economy?
1991 की नई आर्थिक नीति का उद्देश्य किस प्रकार से भारतीय अर्थव्यवस्था में अधिक प्रतिस्पर्धी माहौल बनाना था?

(1) By limiting the participation of the private sector / निजी क्षेत्रक की भागीदारी को सीमित करके
(2) By imposing new restrictions on trade flows / व्यापार प्रवाह पर नए प्रतिबंध लागू करके
(3) By increasing government regulation and control / सरकारी विनियमन और नियंत्रण बढ़ाकर
(4) **By removing barriers to the entry and growth of firms / फर्मों के प्रवेश और विकास में बाधाओं को दूर करके ✔**

Q.79 Which of the following rivers of India forms an estuary instead of a delta?

भारत की निम्नलिखित में से कौन-सी नदी डेल्टा के स्थान पर मुहाना बनाती है?

(1) Yamuna / यमुना

(2) Kosi / कोशी

(3) **Narmada / नर्मदा ✔**

(4) Gandak / गंडक

Q.80 Although the phrase 'judicial review' is not explicitly mentioned in the Constitution, which two Articles explicitly provide for it?

यद्यपि संविधान में 'न्यायिक समीक्षा' वाक्यांश का स्पष्ट रूप से उल्लेख नहीं किया गया है, लेकिन इसके लिए कौन-से दो अनुच्छेद स्पष्ट रूप से प्रावधान करते हैं?

(1) Article 13 and Article 226 / अनुच्छेद 13 और अनुच्छेद 226

(2) Article 32 and Article 226 / अनुच्छेद 32 और अनुच्छेद 226

(3) Article 13 and Article 32 / अनुच्छेद 13 और अनुच्छेद 32

(4) Article 14 and Article 19 / अनुच्छेद 14 और अनुच्छेद 19

Arithmetical and Numerical Ability

Q.81 The average of 75 natural numbers is 35. If each number is increased by 5, find the average of the new numbers thus formed.

75 प्राकृत संख्याओं का औसत 35 है। यदि प्रत्येक संख्या में 5 की वृद्धि की जाती है, तो इस प्रकार बनी नई संख्याओं का औसत ज्ञात कीजिए।

(1) 35

(2) 45

(3) **40 ✔**

(4) 50

Q.82 A rectangular garden is 180 m long and 150 m wide. It is to be divided into square plots of the largest possible size. What will be the length of the side of each square plot?

एक आयताकार उद्यान की लंबाई 180 m और चौड़ाई 150 m है। इसे सबसे बड़े संभावित आकार के वर्ग भूखंडों में विभाजित किया जाना है। प्रत्येक वर्ग भूखंड की भुजा की लंबाई कितनी होगी?

(1) **30 m ✔**

(2) 45 m

(3) 60 m

(4) 28 m

Q.83 In an examination, B scored 60 marks while A scored 80 marks out of a maximum of 90 marks. What percentage of B's marks are A's marks? (Rounded off to two decimal places)

एक परीक्षा में, अधिकतम 90 अंकों में से B को 60 अंक प्राप्त हुए जबकि A को 80 अंक प्राप्त हुए। A के अंक, B के अंकों का कितना प्रतिशत हैं? (दशमलव के दो स्थानों तक पूर्णांकित)

(1) 90.22%

(2) 188.89%

(3) 175.55%

(4) **133.33% ✔**

Q.84 If the simple interest on a sum of money for 2 years at the same rate of interest is ₹48 and the compound interest, compounded annually, on the same sum for 2 years is ₹72, then find the sum (in ₹).

यदि किसी धनराशि पर समान ब्याज दर पर 2 वर्ष में प्राप्त साधारण ब्याज ₹48 है और उसी धनराशि पर 2 वर्ष में प्राप्त वार्षिक रूप से संयोजित, चक्रवृद्धि ब्याज ₹72 है, तो वह धनराशि (₹ में) ज्ञात कीजिए।

(1) 18

(2) **24** ✔

(3) 48

(4) 36

Q.85 A student obtained 32% marks out of 300 in Science. If he has to obtain 46% marks overall, what percentage of marks out of 200 should he obtain in the language papers?

एक विद्यार्थी ने विज्ञान विषय में 300 में से 32% अंक प्राप्त किए। यदि उसे समग्र 46% अंक प्राप्त करने हैं, तो उसे भाषा के पेपरों में 200 में से कितने प्रतिशत अंक प्राप्त करने चाहिए?

(1) 57 %

(2) 65%

(3) **67%** ✔

(4) 62%

Q.86 A café has to prepare 150 kg of a coffee blend to be sold at ₹650 per kg, for which it can use 60 kg of premium beans (₹900/kg), x kg of standard beans (₹600/kg), and economy beans (₹300/kg) for the remaining part. Find the value of x.

एक कैफे को ₹650 प्रति kg की दर पर बिकने वाला 150 kg कॉफी मिश्रण तैयार करना है जिसके लिए वह 60 kg प्रीमियम बीन्स (₹900/kg), x kg स्टैंडर्ड बीन्स (₹600/kg), और शेष भाग के लिए इकोनॉमी बीन्स (₹300/kg) का उपयोग कर सकता है। x का मान ज्ञात कीजिए।

(1) 57

(2) 59

(3) **55** ✔

(4) 53

Q.87 Simplify $\sqrt[6]{64} + \sqrt[4]{20736} + \sqrt[3]{2744} + \sqrt{5184}$.

$\sqrt[6]{64} + \sqrt[4]{20736} + \sqrt[3]{2744} + \sqrt{5184}$ को सरल कीजिए।

(1) 80

(2) 86

(3) 64

(4) **100** ✔

Q.88 400 custard apples were bought at the rate of ₹1370 per hundred and sold at a profit of ₹820. Find the selling price (in ₹) of custard apples per dozen.

400 कस्टर्ड सेब ₹1370 प्रति सैकड़ा की दर से खरीदे गए और ₹820 के लाभ पर बेचे गए। कस्टर्ड सेब का प्रति दर्जन विक्रय मूल्य (₹ में) ज्ञात कीजिए।

(1) 204

(2) 179

(3) **189** ✔

(4) 199

Q.89 How many prime numbers are there between 489 and 495 (both inclusive)?

489 और 495 के बीच (दोनों को शामिल करते हुए) कितनी अभाज्य संख्याएं हैं?

(1) 2

(2) 4

(3) **1** ✔

(4) 3

Q.90 By selling an article for ₹21,600, a profit of 20% is obtained. Find its cost price.

एक वस्तु को ₹21,600 में बेचने पर 20% का लाभ प्राप्त होता है। इसका क्रय मूल्य ज्ञात कीजिए।

(1) ₹19,000

(2) ₹18,500

(3) **₹18,000** ✔

(4) ₹17,500

Q.91 The wages of 5 plumbers for 2 days are ₹1230. What will be the wages (in ₹) of one plumber for one day?

5 प्लंबरों की 2 दिन की मजदूरी ₹1230 है। एक प्लंबर की एक दिन की मजदूरी (₹ में) कितनी होगी?

(1) **123** ✔

(2) 247

(3) 124

(4) 246

Q.92 The average of 10 results is 54 and the average of the first 9 results is 53. Find the 10th result.

10 परिणामों का औसत 54 है और पहले 9 परिणामों का औसत 53 है। 10वां परिणाम ज्ञात कीजिए।

(1) 62

(2) 53

(3) **63** ✔

(4) 54

QuickSarkari.com | WhatsApp Channel | Telegram: t.me/quick_sarkari

Q.93 The table given below shows the number of cakes sold by five traders in six months.

Trader/Month | January | February | March | April | May | June

A | 220 | 190 | 230 | 240 | 220 | 290

B | 240 | 200 | 240 | 250 | 265 | 310

C | 210 | 230 | 235 | 255 | 260 | 320

D | 200 | 220 | 240 | 230 | 230 | 280

E | 250 | 260 | 220 | 250 | 240 | 350 What is the average number of cakes sold per month by trader B from January to May?

नीचे दी गई तालिका में पांच व्यापारियों द्वारा छह महीनों में बेचे गए केक की संख्या दर्शाई गई है।

व्यापारी/महीना | जनवरी | फरवरी | मार्च | अप्रैल | मई | जून

A | 220 | 190 | 230 | 240 | 220 | 290

B | 240 | 200 | 240 | 250 | 265 | 310

C | 210 | 230 | 235 | 255 | 260 | 320

D | 200 | 220 | 240 | 230 | 230 | 280

E | 250 | 260 | 220 | 250 | 240 | 350 व्यापारी B द्वारा जनवरी से मई तक प्रति माह बेचे गए केक की औसत संख्या कितनी है?

(1) 244

(2) 229

(3) **239** ✔

(4) 234

Q.94 Find the value of (12 ÷ 6) × 7.

(12 ÷ 6) × 7 का मान ज्ञात कीजिए।

(1) 16

(2) **14** ✔

(3) 18

(4) 15

Quick Sarkari

Q.95 The given pie chart shows the percentage distribution of content developers working in a company from five different states. The number of content developers from Pune is 1720. Find the number of content developers from Delhi.

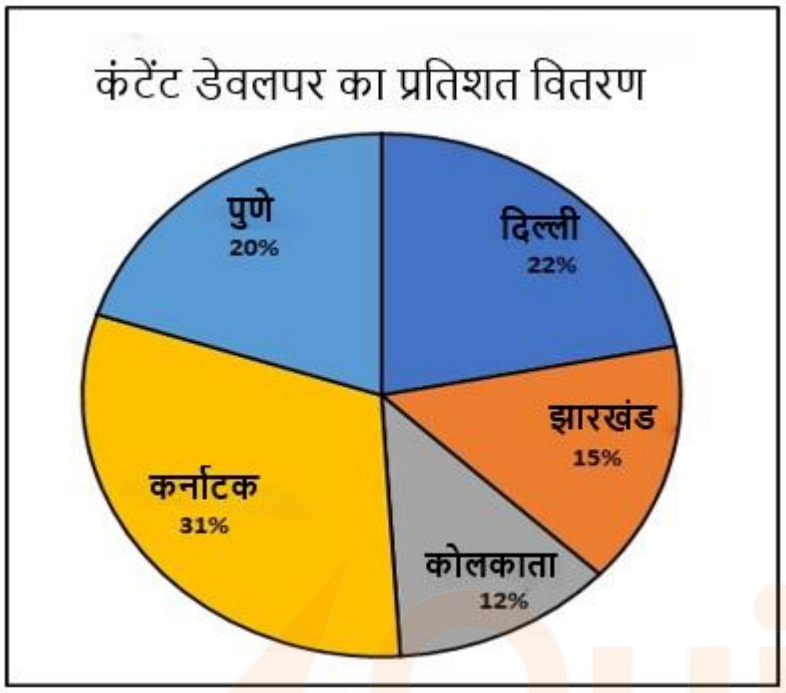

दिए गए पाई चार्ट में किसी कंपनी में पांच अलग-अलग राज्यों से कार्य करने वाले कंटेंट डेवलपर का प्रतिशत वितरण दर्शाया गया है। पुणे से कंटेंट डेवलपर की संख्या 1720 है। दिल्ली से कंटेंट डेवलपर की संख्या ज्ञात कीजिए।

(1) 1172
(2) 1452
(3) **1892** ✔
(4) 1752

Q.96 What is the largest number which divides 22, 64 and 85, leaving the same remainder in each case?
वह सबसे बड़ी संख्या कौन-सी है, जिससे 22, 64 और 85 को विभाजित करने पर प्रत्येक स्थिति में समान शेषफल प्राप्त होता है?

(1) **21** ✔
(2) 16
(3) 20
(4) 18

QuickSarkari.com | WhatsApp Channel | Telegram: t.me/quick_sarkari

Q.97 Mahesh has two grandsons, David and Rodney. David, aged 14 years, gets some sum of money from Mahesh, and Rodney, aged 15 years, gets the remaining sum. But David and Rodney will get the money only when they turn 22 years old. Till then, the money will remain deposited in a bank at a compound interest rate of 8% per annum, compounded annually. When both turn 22 years old, they get equal amounts. If Mahesh had ₹23400 in total, how much money (in ₹) did Mahesh initially give to Rodney?

महेश के दो पोते डेविड और रॉडनी हैं। 14 वर्षीय डेविड को महेश से कुछ धनराशि मिलती है, और 15 वर्षीय रॉडनी को शेष धनराशि मिलती है। लेकिन डेविड और रॉडनी को धनराशि तभी मिलेगी जब वे 22 वर्ष के हो जाएंगे। तब तक, धनराशि एक बैंक में वार्षिक रूप से संयोजित होने वाले 8% वार्षिक चक्रवृद्धि ब्याज की दर पर जमा रहेगी। जब दोनों 22 वर्ष के हो जाते हैं, तो उन्हें बराबर धनराशि मिलती है। यदि महेश के पास कुल ₹23400 थे, तो शुरुआत में महेश ने रॉडनी को कितनी धनराशि (₹ में) दी थी?

(1) 12500
(2) 11000
(3) 11250
(4) 12150 ✔

Q.98 In how many years will ₹360 be obtained as simple interest on a sum of ₹6,000 at the rate of 3% per annum?

₹6,000 कि धनराशि पर 3% वार्षिक ब्याज दर से साधारण ब्याज के रूप में ₹360 कितने वर्ष में प्राप्त होगा?

(1) 1
(2) 4
(3) 3
(4) 2 ✔

Q.99 Find the value of $(\sqrt{90} \times \sqrt{18} \times \sqrt{10} \times \sqrt{3})/(\sqrt{96} \times 5 \times \sqrt{4})$
.

$(\sqrt{90} \times \sqrt{18} \times \sqrt{10} \times \sqrt{3})/(\sqrt{96} \times 5 \times \sqrt{4})$
का मान ज्ञात कीजिए।

(1) 7/2
(2) 1/2
(3) 5/2
(4) 9/4 ✔

Q.100 The wages of 5 labourers for 2 days are ₹1,240. What will be the wages (in ₹) of one labourer for one day?

5 श्रमिकों की 2 दिन की मजदूरी ₹1,240 है। एक श्रमिक की एक दिन की मजदूरी (₹ में) कितनी होगी है?

(1) 248
(2) 125
(3) 249
(4) 124 ✔

QuickSarkari.com | WhatsApp Channel | Telegram: t.me/quick_sarkari

Q.101 A semicircular sheet of radius 14 cm is folded into an open conical vessel. Which of the following statements is true? (Take π = 22/7)

14 cm त्रिज्या वाली एक अर्धवृत्ताकार शीट को एक विवृत शंक्वाकार पात्र में मोड़ दिया गया है। निम्नलिखित में से कौन-सा कथन सत्य है? (π = 22/7 लीजिए)

(1) The capacity of the vessel is approximately 622 cm^3 / पात्र की क्षमता लगभग 622 cm^3 है ✔

(2) The cost of painting the outer surface of the cone at the rate of ₹5 per cm^2 is ₹1642 / शंकु के बाह्य पृष्ठ पर ₹5 प्रति cm^2 की दर से पेंट करने की लागत ₹1642 है

(3) The slant height of the vessel is 7 cm / पात्र की तिर्यक ऊंचाई 7 cm है

(4) The depth of the vessel is 8√3 cm / पात्र की गहराई 8√3 cm है

Q.102 The cost price of an article is ₹6494. The seller wants to earn a profit of 26% after giving a discount of 19% on the marked price. Find the marked price of the article. (Round off your answer to the nearest rupee)

किसी वस्तु का क्रय मूल्य ₹6494 है। विक्रेता अंकित मूल्य पर 19% की छूट देकर 26% का लाभ अर्जित करना चाहता है। वस्तु का अंकित मूल्य ज्ञात कीजिए। (उत्तर को निकटतम रुपये में पूर्णांकित कीजिए)

(1) ₹10099

(2) ₹10097

(3) ₹10102 ✔

(4) ₹10104

Q.103 Find the fourth proportional to 24, 39 and 88.

24, 39 और 88 का चतुर्थानुपाती ज्ञात कीजिए।

(1) 113

(2) 128

(3) 143 ✔

(4) 99

Q.104 If A : B = 5 : 7 and B : C = 6 : 10, then find the value of A : B : C.

यदि A : B = 5 : 7 और B : C = 6 : 10, तो A : B : C का मान ज्ञात कीजिए।

(1) 15 : 21 : 35 ✔

(2) 1 : 32 : 44

(3) 15 : 23 : 40

(4) 4 : 31 : 20

Q.105 If x is inversely proportional to y and y = 13 when x = 30, then find the value of x when y = 10.

यदि x, y के व्युत्क्रमानुपाती हैं और x = 30 होने पर y = 13 है, तो y = 10 होने पर x का मान ज्ञात कीजिए।

(1) 32

(2) 41

(3) 39 ✔

(4) 43

QuickSarkari.com | WhatsApp Channel | Telegram: t.me/quick_sarkari

Q.106 A solid metallic hemisphere of radius 7 cm is melted to form a solid cone and a solid sphere, both made of the same metal. The height of the cone is 9 cm and the radius of its base is equal to the radius of the original hemisphere. Find the radius of the new sphere formed. (Round off your answer to the nearest integer)

7 cm त्रिज्या वाले एक ठोस धात्विक अर्धगोले को पिघलाकर एक ठोस शंकु और एक ठोस गोला बनाया जाता है, दोनों समान धातु से बने हैं। शंकु की ऊंचाई 9 cm है और आधार की त्रिज्या, मूल अर्धगोले की त्रिज्या के बराबर है। बने हुए नए गोले की त्रिज्या ज्ञात कीजिए। (अपने उत्तर को निकटतम पूर्णांक तक पूर्णांकित कीजिए)

(1) 6 cm

(2) **4 cm ✔**

(3) 5 cm

(4) 3 cm

Q.107 If the curved surface area of a cylinder is 736.7 cm^2 and its height is 39 cm, then find its volume. (Take π = 3.14 and round off your answer to two decimal places.)

यदि किसी बेलन का पार्श्व पृष्ठीय क्षेत्रफल 736.7 cm^2 है और इसकी ऊंचाई 39 cm है, तो इसका आयतन ज्ञात कीजिए।
(π = 3.14 लीजिए और अपने उत्तर को दशमलव के दो स्थानों तक पूर्णांकित कीजिए।)

(1) 1139.47 cm^3

(2) 1072.74 cm^3

(3) 1069.33 cm^3

(4) **1107.97 cm^3 ✔**

Q.108 A boat covers 45 km upstream and 60 km downstream in 7 hours, and covers 30 km upstream and 48 km downstream in 5 hours. Find the speed of the stream.

एक नाव, धारा की विपरीत दिशा में 45 km और धारा की दिशा में 60 km की यात्रा 7 घंटे में तय करती है तथा धारा की विपरीत दिशा में 30 km और धारा की दिशा में 48 km की यात्रा 5 घंटे में तय करती है। धारा की चाल ज्ञात कीजिए।

(1) 4 km/hr

(2) 6 km/hr

(3) 5 km/hr

(4) **7 km/hr ✔**

Q.109 A train travels from A to B at a speed of 60 km/h and returns from B to A by the same route at a speed of 12 km/h. What is the average speed (in km/h) of the train during the two-way journey?

एक रेलगाड़ी, 60 km/h की चाल से A से B तक जाती है और उसी मार्ग से 12 km/h की चाल से B से A तक वापस आ जाती है। दो-तरफा यात्रा के दौरान रेलगाड़ी की औसत चाल (km/h में) कितनी है?

(1) 23

(2) 18

(3) 22

(4) **20 ✔**

QuickSarkari.com | WhatsApp Channel | Telegram: t.me/quick_sarkari

Q.110 A shopkeeper sells an article for ₹560.7 after giving two successive discounts of 55% and 65% on its marked price. Had he not given any discount, he would have earned a profit of 25%. What is the cost price (in ₹) of the article?

एक दुकानदार किसी वस्तु को उसके अंकित मूल्य पर 55% और 65% की दो क्रमिक छूट देने के बाद ₹560.7 में बेचता है। यदि उसने कोई छूट नहीं दी होती, तो उसे 25% का लाभ प्राप्त होता। वस्तु का क्रय मूल्य (₹ में) कितना है?

(1) 2,856
(2) 2,874
(3) 2,828
(4) 2,848 ✔

Q.111 Amit and Rohan together can complete a work in 6 days. If Amit alone can do this work in 10 days, find the number of days in which Amit and Rohan can complete the same work by working on alternate days.

अमित और रोहन मिलकर एक कार्य को 6 दिन में पूरा कर सकते हैं। यदि अमित इस कार्य को अकेले 10 दिन में कर सकता है, तो उन दिनों की संख्या ज्ञात कीजिए जिनमें अमित और रोहन एकांतर दिनों पर कार्य करके इसी कार्य को पूरा कर सकते हैं।

(1) 13 days / 13 दिन
(2) 14 days / 14 दिन
(3) 12 days / 12 दिन ✔
(4) 11 days / 11 दिन

Q.112 A store is offering a discount of 29% on all items. If a customer pays ₹1,775 for an item, what was the marked price of each item?

एक स्टोर सभी वस्तुओं पर 29% की छूट प्रदान कर रहा है। यदि कोई ग्राहक एक वस्तु के लिए ₹1,775 का भुगतान करता है, तो प्रत्येक वस्तु का अंकित मूल्य क्या था?

(1) ₹2,500 ✔
(2) ₹2,020
(3) ₹2,360
(4) ₹1,800

Q.113 A conical ice-cream cone has a radius of 3 cm and a height of 7 cm. Find its volume. (π = 22/7 to be used)

एक शंक्वाकार आइसक्रीम कोन की त्रिज्या 3 cm और ऊंचाई 7 cm है। उसका आयतन ज्ञात कीजिए। (π = 22/7 का उपयोग करें)

(1) 66 cm^3 ✔
(2) 81 cm^3
(3) 70 cm^3
(4) 78 cm^3

Q.114 A and B complete a work in 12 days. If A alone can complete the same work in 28 days, in how many days will B alone complete the same work?

A और B किसी कार्य को 12 दिन में पूरा करते हैं। यदि A अकेले उसी कार्य को 28 दिन में पूरा कर सकता है, तो B अकेले उसी कार्य को कितने दिन में पूरा करेगा?

(1) 21 ✔
(2) 23
(3) 20
(4) 22

QuickSarkari.com | WhatsApp Channel | Telegram: t.me/quick_sarkari

Q.115 Find the total surface area of a cuboid having length 8 cm, breadth 12 cm and height 5 cm.

8 cm लंबाई, 12 cm चौड़ाई और 5 cm ऊंचाई वाले घनाभ का संपूर्ण पृष्ठीय क्षेत्रफल ज्ञात कीजिए।

(1) 386 cm^2

(2) 368 cm^2

(3) 374 cm^2

(4) **392 cm^2** ✔

Q.116 The areas of three adjacent faces of a solid cuboid are 99 cm^2, 275 cm^2 and 121 cm^2. Find the volume (in cm^3) of the cuboid.

एक ठोस घनाभ के तीन संलग्न फलकों का क्षेत्रफल 99 cm^2, 275 cm^2 और 121 cm^2 हैं। घनाभ का आयतन (cm^3 में) ज्ञात कीजिए।

(1) 1546

(2) **1815** ✔

(3) 1823

(4) 1839

Q.117 If the length of a rectangle is 10 cm and its breadth is half of its length, what will be the area of the rectangle?

यदि एक आयत की लंबाई 10 cm है और उसकी चौड़ाई, लंबाई की आधी है, तो आयत का क्षेत्रफल कितना होगा?

(1) 30 cm^2

(2) 40 cm^2

(3) **50 cm^2** ✔

(4) 25 cm^2

Q.118 A cantonment of 1202 soldiers has food supplies for 21 days. If the number of soldiers in the cantonment is increased to 1803, for how many days will the food supplies last?

1202 सैनिकों की एक छावनी में 21 दिनों की खाद्य सामग्री है। यदि छावनी में सैनिकों की संख्या बढ़ाकर 1803 कर दी जाए, तो खाद्य सामग्री कितने दिनों तक चलेगी?

(1) **14** ✔

(2) 16

(3) 15

(4) 13

Q.119 A sum of money is divided among A, B and C in the ratio 4 : 5 : 6. If the difference between the shares of C and B is ₹200, find the total sum.

एक धनराशि को A, B और C के बीच 4 : 5 : 6 के अनुपात में विभाजित किया जाता है। यदि C और B के हिस्सों के बीच अंतर ₹200 है, तो कुल धनराशि ज्ञात कीजिए।

(1) **₹3000** ✔

(2) ₹2500

(3) ₹1500

(4) ₹2000

Q.120 The cost of painting a right circular cylindrical solid at the rate of ₹21 per square metre is ₹M. If the base diameter of the solid is 2 m and its height is 14 m, then find the value of M.
(π = 22/7 to be used)

एक लंब वृत्तीय बेलनाकार ठोस को ₹21 प्रति वर्ग मीटर की दर से पेंट कराने की लागत ₹M है। यदि ठोस का आधार व्यास 2 m और ऊंचाई 14 m है, तो M का मान ज्ञात कीजिए।
(π = 22/7 का उपयोग करें)

(1) 1980 ✔
(2) 2145
(3) 2100
(4) 2000

English Language and Comprehension

Q.121 Complete the following sentence by choosing the correct option.
During ___ rainy evening, she found ___ old photograph that brought back many forgotten childhood memories.

(1) the, a
(2) a, an ✔
(3) a, a
(4) the, the

Q.122 In the given question, a statement divided into different segments is given. Rearrange all the segments to form a coherent statement.
(A) hours before finally going to bed
(B) the final exam and she reviewed
(C) her notes again in the early
(D) maria studied all night for

(1) BCAD
(2) CABD
(3) ABCD
(4) DBCA ✔

Q.123 In the given question, a statement divided into different segments. The first segment is fixed, rearrange the other segments to form a coherent statement.
She opened the old book / revealing a faded letter (P) / tucked between yellowing pages (Q) / with trembling fingers (R) / and misty eyes (S)

(1) RSPQ ✔
(2) SRPQ
(3) PSQR
(4) QRPS

Q.124 Sentences of a paragraph are given below. While the first and the last sentences (A1 and A6) are in the correct order, the sentences in between are jumbled up. Arrange the sentences in the correct order to form a meaningful and coherent paragraph.

A1. Saree is an Indian traditional apparel that has been worn for centuries.

P. Yet it remains the most fashionable garment in today's world.

Q. This attire is known for giving a coy and shy look.

R. However, it can also be draped in a way that looks graceful and sensual.

S. It is not only a symbol of fashion but also reflects a woman's elegance and emotions.

A6. The saree has deep roots in Indian culture and heritage.

(1) SQPR

(2) QRSP ✔

(3) PQRS

(4) RSPQ

Q.125 Identify the sentence with the correct future tense.

(1) The contractor will have repaired the bridge before the inspection begins. ✔

(2) The contractor will have been repairing the bridge before the inspection begins.

(3) The contractor will repairing the bridge before the inspection begins.

(4) The contractor will be repaired the bridge before the inspection begins.

Q.126 Parts of a sentence are given below in jumbled order. Arrange the parts in the correct order to form a meaningful sentence.

1. adaptability and embracing change, individuals can transform this fear into
2. or global challenges, can lead to anxiety and stress; however, by focusing on
3. motivation, allowing them to approach the future with resilience and hope
4. the fear of the future, often driven by uncertainties about career, personal life,

(1) 1-2-3-4

(2) 3-2-4-1

(3) 4-2-1-3 ✔

(4) 2-1-4-3

Q.127 Choose the correct option to complete the sentence.

Despite facing numerous challenges in setting up the laboratory, Dr. Raman ensured that all the equipment was calibrated according to _____ highest standards of precision and accuracy.

(1) an

(2) the ✔

(3) no article

(4) a

Q.128 Complete the sentence with appropriate options in the blanks.

The research paper was written ___ to impress the committee and presented ___ to highlight its originality.

(1) meticulously, persuasively ✔

(2) superficially, poorly

(3) hastily, vaguely

(4) carelessly, weakly

Q.129 Fill in the blank with the most appropriate option.
The success of the project depends largely _____ the dedication of the team.

(1) for
(2) at
(3) **on ✔**
(4) of

Q.130 Choose the correct option to complete the sentence.
Despite the heavy rain, the children _____ in the park until sunset.

(1) have played
(2) playing
(3) **played ✔**
(4) play

Q.131 Select the most appropriate option to complete the sentence.
The injured athlete ran _____ towards the finish line, determined to win the gold medal.

(1) fearfully
(2) practically
(3) **bravely ✔**
(4) hesitantly

Q.132 Select the most appropriate one-word substitute for the given phrase.
A person who is interested in antiquities

(1) Iconoclast
(2) Actuary
(3) **Antiquarian ✔**
(4) Bibliographer

Q.133 Select the word which means the same as the group of words given below.
One who doubts or questions everything

(1) **Skeptic ✔**
(2) Optimist
(3) Investigator
(4) Prophet

Q.134 Out of the four alternatives, choose the one that can be used as a substitute for the following word segment.
A person who lives alone and apart from the society for religious reasons

(1) **Hermit ✔**
(2) Pilgrim
(3) Monk
(4) Missionary

QuickSarkari.com | WhatsApp Channel | Telegram: t.me/quick_sarkari

Q.135 In this question, a statement with some highlighted text is given. From the list of alternatives provided, select the option which can replace this highlighted text.
Thomas, a great lover of books, donated many of his to the local library to encourage reading.

(1) philistine
(2) pessimist
(3) **bibliophile ✔**
(4) bigot

Q.136 Select an appropriate title for the passage from the given options.

(1) **Health Benefits of a Balanced Diet ✔**
(2) Problems Caused by Unhealthy Eating
(3) Popular Food Choices Among Teenagers
(4) Different Types of Regional Foods

Q.137 What is the main idea of the passage?

(1) Daily exercise builds strong muscles, increases energy, and improves fitness.
(2) Fresh food and clean water provide daily energy and keep people active.
(3) Modern medicines treat many diseases, improve health, and increase longevity.
(4) **Healthy eating supports good health, prevents illness, and promotes overall well-being. ✔**

Q.138 What is the structure of the passage?

(1) **Expository ✔**
(2) Narrative
(3) Descriptive
(4) Chronological

Q.139 What is the tone of the passage?

(1) Critical and Disapproving
(2) **Informative and Encouraging ✔**
(3) Emotional and Persuasive
(4) Humorous and Informative

Q.140 Select the correct antonym of the given word from the passage.
Moderation

(1) Shortage
(2) Illness
(3) **Excess ✔**
(4) Weakness

Q.141 Select the option that is the antonym of the underlined word in the sentence below:
His incessant questioning irritated the teacher, who had already explained the topic several times.

(1) magnanimous
(2) pernicious
(3) relentless
(4) **sporadic ✔**

Q.142 Choose the correct direct speech for the sentence below.
The teacher told the students that they should submit their assignments by Friday evening if they wanted full marks and that late submissions would not be accepted.

(1) The teacher said, "They must submit their assignments by Friday evening if they want full marks, and late submissions will not be accepted."
(2) The teacher said, "You must submit your assignments by Friday evening if you want full marks, and late submissions will not be accepted."
(3) The teacher said, "They should submit their assignments by Friday evening if they wanted full marks, and late submissions would not be accepted."
(4) The teacher said, "You should submit your assignments by Friday evening if you want full marks, and late submissions will not be accepted." ✔

Q.143 Convert the active sentence into passive:
Active: The manager is reviewing the financial report carefully.

(1) The financial report is being reviewed carefully by the manager. ✔
(2) The financial report has been reviewed carefully by the manager.
(3) The financial report was reviewed carefully by the manager.
(4) The financial report will be reviewed carefully by the manager.

Q.144 Rectify the sentence by selecting the correct spelling from the options:
The occurence of natural gas fields has surprised scientists.

(1) occurance
(2) occurrence ✔
(3) occurrance
(4) ocurrance

Q.145 Identify the correct idiom to replace the underlined segment.
The politician's promises sounded impressive, but most voters chose to be sceptical about it.

(1) turn a blind eye
(2) take it with a grain of salt ✔
(3) raise their eyebrows
(4) kick him down the ladder

Q.146 Choose the misspelt word in the sentence below:
The researcher furnished copious evidence to bolstar her claims in the report.

(1) furnished
(2) researcher
(3) bolstar ✔
(4) copious

Q.147 Select the present tense version of the following complex sentence.
'After he had carefully analyzed the data, he realized that the initial hypothesis would require significant modification to align with the new evidence.'

(1) After he analyzes the data, he will realize that the initial hypothesis will require significant modification to align with the new evidence.

(2) After he had analyzed the data, he realized that the initial hypothesis required significant modification to align with the new evidence.

(3) After he will analyze the data, he will realize that the initial hypothesis will require significant modification to align with the new evidence.

(4) After he carefully analyzes the data, he realizes that the initial hypothesis requires significant modification to align with the new evidence. ✔

Q.148 Select the option that is the most appropriate antonym of the word “sporadic” as used in the sentence.
The village received sporadic electricity supply.

(1) Irregular

(2) Consistent ✔

(3) Scattered

(4) Random

Q.149 Find the ANTONYM of 'sporadic' from the given sentence.
The once irregular updates became continuous, frequent, and well-documented after the system upgrade.

(1) irregular

(2) upgrade

(3) continuous ✔

(4) documented

Q.150 Identify the correct proverb to replace the underlined segment.
Despite his promises to be honest, he was caught cheating again—proving that people cannot change who they are.

(1) you can take a horse to the water, but you can’t make it drink

(2) the higher the monkey climbs, the more he shows his tail

(3) the leopard does not change his spots ✔

(4) every herring must hang by its own gill

Q.151 Select the correct sentence from the following options that transforms the given sentence to Active voice.
The gate was found by him broken last night.

(1) He found the gate broken last night. ✔

(2) He finds the gate broken last night.

(3) He has found the gate broken last night.

(4) The gate found him broken last night

Q.152 Choose the option that correctly completes the sentence in direct speech.
The scientist said, "If the temperature _____ further, the reaction will stop."

(1) will rise
(2) rose
(3) rises ✔
(4) had risen

Q.153 In the following question, a statement has been given in brackets. You are required to replace the statement with the correct idiom given in the options.
After studying consistently all week, the final maths quiz turned out to be (very easy).

(1) a blessing in disguise
(2) a piece of cake ✔
(3) at one's wit's end
(4) a tough nut to crack

Q.154 Select the proverb that can substitute the underlined segment in the given sentence:
Sir CV Raman made original contribution to physics by discovering the Raman effect. People are appreciated for their achievements or their righteousness.

(1) Virtue has its own reward ✔
(2) Beauty is truth, truth is beauty
(3) All roads lead to Rome
(4) Honesty is the best policy

Q.155 Select the option that is the most appropriate antonym of the word "hostile" as used in the sentence.
The negotiations took place in a hostile environment.

(1) Amiable ✔
(2) Violent
(3) Threatening
(4) Aggressive

Q.156 Select an appropriate title for the passage from the given options.

(1) A Peaceful Morning by the Village River ✔
(2) Modern Changes in Rural Communities
(3) The Dangers of Living Near the Riverbank
(4) Life in a Desert Community

Q.157 What is the main idea of the passage?

(1) The importance of rivers for transportation and trade between villages.
(2) The daily struggles and hard labor of people living in rural areas.
(3) The beauty of a village river and the peaceful nature of rural life. ✔
(4) The ways in which modern technology is changing traditional farming.

Q.158 Identify the structure of the passage.

(1) Descriptive ✔
(2) Expository
(3) Chronological
(4) Narrative

Q.159 Which of the following is a fact given in the passage?

(1) The village river is frequently used for commercial shipping.

(2) **Children play near the riverbank in the early morning. ✔**

(3) The river is polluted with industrial waste.

(4) Farmers use modern tractors to work their fields.

Q.160 Select the correct antonym of the given word from the passage.

Unquiet

(1) **Calm ✔**

(2) Lovely

(3) Natural

(4) Beautiful

Hindi Language and Comprehension

Q.161 अधिकरण कारक से वाक्य पूर्ण करें - किताब मेज ------ रखी है।

(1) **पर ✔**

(2) में

(3) ने

(4) को

Q.162 नीचे दिए गए वाक्यों में से शुद्ध वाक्य का चयन कीजिए।

(1) गगन रोज सुबह दौड़ाने जाता है जिससे उसे धावक बनना है ।

(2) **मजदूर खूब काम करता है ताकि अच्छा पैसा मिले। ✔**

(3) रिम्पी लगन से पढ़ाई कर रही है क्योंकि परीक्षा में प्रथम आ सके ।

(4) कल मुझे अस्पताल जाना था क्योंकि मैं नहीं जा सका ।

Q.163 सर्वोचित विशेषण शब्द से दिए गए वाक्य का रिक्त स्थान पूर्ण करें— स्वास्थ्य कितनी बड़ी नियामत है यह कोई ..... से पूछे।

(1) पतले

(2) **रोगी ✔**

(3) बूढ़े

(4) गरीब

Q.164 उपयुक्त 'क्रिया-विशेषण' का चयन कर दिए गए वाक्य को पूर्ण कीजिए।

'पायल और पीयूष.....झगड़ते रहते हैं।'

(1) देश -विदेश

(2) **दिन-रात ✔**

(3) साफ -साफ

(4) ठीक-ठीक

Q.165 उपयुक्त 'क्रिया-विशेषण' का चयन कर दिये गये वाक्य को पूर्ण करें- ' शदरुन्निशा बहुत .....पढ़ाई करती है।'

(1) भूल से

(2) वहाँ

(3) बुराई

(4) **मन से ✔**

Q.166 दिए गए वाक्य को क्रम में लिखें -
1. ग्रामीण क्षेत्रों में शिक्षा, स्वास्थ्य, और
2. शहरी क्षेत्रों की ओर पलायन न करें
3. रोजगार के अवसर बढ़ाकर गांवों को
4. विकसित करना चाहिए ताकि लोग

(1) 2314
(2) 4312
(3) 3124
(4) 1342 ✔

Q.167 निम्न वाक्य के रिक्त स्थान में उचित क्रिया-विशेषण का प्रयोग करें- 'राघव तुम बोला करो।'

(1) कहीं -कहीं
(2) जहाँ-जहाँ
(3) कब-कब
(4) धीरे-धीरे ✔

Q.168 'मेघ के समान जो गरजता हो' वाक्यांश के लिए सार्थक शब्द है-

(1) मायावी
(2) बादल
(3) आकाशवाणी
(4) मेघनाद ✔

Q.169 "सुमित्रा ..... बैठी है" स्थानवाचक क्रिया-विशेषण का प्रयोग कर वाक्य को पूर्ण कीजिए-

(1) किसलिए
(2) कब से
(3) चुपचाप
(4) सामने ✔

Q.170 'जो भविष्य में निश्चित रूप से होने को है' वाक्यांश के लिए एक सार्थक शब्द होगा–

(1) भजनीय
(2) भारोपीय
(3) भवितव्य ✔
(4) भूतपूर्व

Q.171 सर्वोचित निश्चयवाचक क्रिया विशेषण शब्द से दिए गए वाक्य का रिक्त स्थान पूर्ण करें— उसने कहा था, कि वह ..... आएगा।

(1) फटाफट
(2) अवश्य ✔
(3) अचानक
(4) कदाचित्

Q.172 सही 'कारक' चिह्न का प्रयोग कर वाक्य को पूर्ण करें- 'भक्त ने भगवान् ..... कोसा'

(1) ने
(2) को ✔
(3) के लिए
(4) से

Q.173 उपयुक्त 'क्रिया-विशेषण' का चयन कर दिये गये वाक्य को पूर्ण करें- 'आज .....से बारिश होने लगी।'

(1) कभी -कभी

(2) जहाँ-कहीं

(3) अचानक ✔

(4) दूर

Q.174 निम्नलिखित विकल्पों में से कौन-सा वाक्य क्रम सही है ?

(1) अस्पताल ले जाया गया घायलों को।

(2) घायलों को अस्पताल ले जाया गया। ✔

(3) घायलों को अस्पताल गया ले जाया।

(4) घायलों को ले जाया गया अस्पताल।

Q.175 रेखांकित वाक्यांश के लिए सार्थक शब्द क्या है?

यह कहावत हमारे गाँव में परंपरा से चली आई हुई उक्ति है, जिसे सभी बड़े-बूढ़े खूब प्रयोग करते हैं।

(1) अनुश्रुति ✔

(2) अन्यमनस्क

(3) अपवाद

(4) अहैतुक

Q.176 उपर्युक्त गद्यांश की संरचना पहचानें -

(1) भावात्मक

(2) तर्कपूर्ण

(3) वर्णनात्मक ✔

(4) नाट्यात्मक

Q.177 अंगकोरवाट मंदिर कहाँ स्थित है ?

(1) जापान

(2) कम्बोडिया ✔

(3) भारत

(4) अमेरिका

Q.178 अंगकोरवाट मंदिर मूल रूप से किस देवता का था?

(1) बुद्ध

(2) शिव

(3) विष्णु ✔

(4) हनुमान

Q.179 उपर्युक्त गद्यांश का भाव पहचानें -

(1) यह मूल रूप से बौद्ध मंदिर है।

(2) इस मंदिर में भारतीय संस्कृति, धर्म और कला को देख सकते हैं। ✔

(3) मंदिर हिंदुओं की नवीन संस्कृति का प्रतीक है।

(4) अंगकोरवाट मंदिर भारत में स्थित है।

QuickSarkari.com | WhatsApp Channel | Telegram: t.me/quick_sarkari

Q.180 गद्यांश का निष्कर्ष पहचानें -

(1) अंगकोरवाट मंदिर को विश्व की महत्वपूर्ण धरोहरों में से एक माना जाता है। ✔

(2) यह मूल रूप से बौद्ध मंदिर था, जिसे परिवर्तित कर विष्णु मंदिर बना दिया गया।

(3) इस मंदिर का निर्माण सामान्य संस्कृति और कला की सामान्य शैली में हुआ है।

(4) मंदिर क्षेत्रफल की दृष्टि से अधिक बड़ा नहीं है।

Q.181 सर्वोचित क्रिया शब्द से दिए गए वाक्य का रिक्त स्थान पूर्ण करें।

माँ नौकर से बच्चे के लिए किताब ..... है।

(1) सिखाती

(2) मँगवाती ✔

(3) लिखती

(4) पढ़ाती

Q.182 सही कारक चिह्नों का चयन कर वाक्य को पूर्ण कीजिए।

'इस बात .....मैं अच्छी तरह समझता हूँ।'

(1) को ✔

(2) के द्वारा

(3) से

(4) ऊपर

Q.183 वर्तनी की दृष्टि से दिये गये वाक्य के किस अंश में त्रुटि है-- खेलों में भाग लेना शारीरीक और मानसिक स्वास्थ्य के लिए फायदेमंद हैं।

(1) फायदेमंद हैं।

(2) स्वास्थ्य के लिए

(3) शारीरीक और मानसिक ✔

(4) खेलों में भाग लेना

Q.184 'संसारिक समस्या क्या है?' प्रस्तुत वाक्य में त्रुटि पूर्ण शब्द है-

(1) संसारिक ✔

(2) समस्या

(3) है

(4) क्या

Q.185 'पसीना' किस प्रकार का शब्द है?

(1) तत्सम

(2) तद्भव ✔

(3) देशज

(4) विदेशज

Q.186 दिए गये वाक्य में वर्तनी की अशुद्धि को पहचान कर निम्नांकित विकल्पों से शुद्ध शब्द का चयन करें- चन्द्रमा पृथ्वी की परिकर्मा करता है।

(1) परीकरमा

(2) परीक्रमा

(3) परिक्रमा ✔

(4) पारीक्रमा

Q.187 वाक्य में अशुद्ध वर्तनी वाले शब्द को पहचानिए– भारत की स्वतंत्रता के लिए अनेकों वीरों ने बलिदान दिया।

(1) वीरों
(2) बलिदान
(3) **अनेकों ✔**
(4) स्वतंत्रता

Q.188 'गंगा नहाना' मुहावरे का सही अर्थ है-

(1) **कठिन कार्य पूरा होना ✔**
(2) बहुत प्यार होना
(3) कड़ी मेहनत करना
(4) सफल होना

Q.189 'पीपल' किस प्रकार का शब्द है?

(1) **तद्भव ✔**
(2) तत्सम
(3) देशज
(4) विदेशज

Q.190 निम्नलिखित में से कौन सा एक वाक्य वर्तनी की दृष्टि से अशुद्ध है?

(1) **हमें अच्छे विचारों को आत्मशात करना चाहिए। ✔**
(2) सम्राट अशोक ने कलिंग युद्ध के बाद बौद्ध धर्म अपना लिया।
(3) अमावस्या की रात आकाश में गहरा अंधकार छा गया।
(4) विद्यालय में ग्रीष्मकालीन अवकाश घोषित कर दिया गया।

Q.191 निम्नलिखित वाक्य में एक अंश वर्तनी की दृष्टि से अशुद्ध है। अशुद्ध अंश की पहचान करें- 'हिंदी साहित्य को वैश्विक साहित्य बनने के लिए बहूत सी चुनौतियों का सामना करना होगा।'

(1) **के लिए बहूत सी चुनौतियों ✔**
(2) हिंदी साहित्य को
(3) का सामना करना होगा।
(4) वैश्विक साहित्य बनने

Q.192 निम्नलिखित मुहावरे का सही अर्थ पहचानें।
टेढ़ी उँगली से घी निकालना

(1) **शक्ति से कार्य सिद्ध करना। ✔**
(2) सब कुछ बर्बाद करना।
(3) किसी का राज़ पता करना
(4) काम बिगड़ जाना।

Q.193 निम्नलिखित वाक्य को उपयुक्त सकर्मक क्रिया के द्वारा पूर्ण करे- सिपाही रोज एक लम्बी _____है

(1) दौड़
(2) **दौड़ दौड़ता ✔**
(3) छलांगे लगाता
(4) कूदता

Q.194 'भगवा पहनना' मुहावरे का अर्थ बताइए -

(1) पढ़ाई पूरी करना

(2) संन्यास ✔

(3) अंतिम संस्कार होना

(4) राजनीति में आना

Q.195 निम्नलिखित मुहावरे का सही अर्थ पहचानें।

घास खोदना

(1) व्यर्थ समय गँवाना। ✔

(2) मेहनत करना।

(3) दूसरों की बुराई करना

(4) किसी का काम बिगाड़ना।

Q.196 गद्यांश का सबसे उपयुक्त शीर्षक क्या होगा?

(1) मनुष्य का स्वार्थ

(2) परोपकार: एक अवगुण

(3) परोपकार और आधुनिक युग

(4) परोपकार: एक महान गुण ✔

Q.197 भारतीय संस्कृति में सबसे बड़ा धर्म किसे माना गया है?

(1) स्वयं की उन्नति को

(2) धन संचय को

(3) परोपकार को ✔

(4) तीर्थ यात्रा को

Q.198 प्रकृति के कौन-से उदाहरण परोपकार की भावना को दर्शाते हैं?

(1) तूफान और वर्षा

(2) पहाड़ों की ऊँचाई और बर्फबारी

(3) नदियों का जल और वृक्षों का फल ✔

(4) समुद्र की गहराई और आग की गर्मी

Q.199 स्वार्थ की भावना व्यक्ति पर क्या प्रभाव डालती है?

(1) उसे संकुचित बनाती है ✔

(2) उसके व्यक्तित्त्व को विशाल बनाती है

(3) उसे वीर और निडर बनाती है

(4) उसे प्रसिद्ध और लोकप्रिय बनाती है

Q.200 सच्ची खुशी किसे कहा गया है?

(1) विदेश यात्रा करना

(2) दूसरों के चेहरे पर मुस्कान लाना ✔

(3) अधिक से अधिक पैसा कमाना

(4) बड़ा पद प्राप्त करना

Answer Key / उत्तर कुंजी

1	2	3	4	5	6	7	8	9	10	11	12	13	14	15
3	2	3	4	4	1	2	3	2	4	2	3	2	4	4

16 0	**17** 1	**18** 1	**19** 2	**20** 1	**21** 3	**22** 2	**23** 2	**24** 2	**25** 3	**26** 4	**27** 2	**28** 4	**29** 4	**30** 2
31 2	**32** 2	**33** 3	**34** 2	**35** 3	**36** 2	**37** 2	**38** 3	**39** 1	**40** 2	**41** 4	**42** 2	**43** 1	**44** 4	**45** 1
46 3	**47** 2	**48** 2	**49** 1	**50** 1	**51** 4	**52** 1	**53** 2	**54** 3	**55** 1	**56** 1	**57** 1	**58** 1	**59** 4	**60** 2
61 2	**62** 2	**63** 2	**64** 1	**65** 2	**66** 3	**67** 3	**68** 1	**69** 4	**70** 2	**71** 4	**72** 4	**73** 2	**74** 1	**75** 1
76 4	**77** 4	**78** 4	**79** 3	**80** 0	**81** 3	**82** 1	**83** 4	**84** 2	**85** 3	**86** 3	**87** 4	**88** 3	**89** 3	**90** 3
91 1	**92** 3	**93** 3	**94** 2	**95** 3	**96** 1	**97** 4	**98** 4	**99** 4	**100** 4	**101** 1	**102** 3	**103** 3	**104** 1	**105** 3
106 2	**107** 4	**108** 4	**109** 4	**110** 4	**111** 3	**112** 1	**113** 1	**114** 1	**115** 4	**116** 2	**117** 3	**118** 1	**119** 1	**120** 1
121 2	**122** 4	**123** 1	**124** 2	**125** 1	**126** 3	**127** 2	**128** 1	**129** 3	**130** 3	**131** 3	**132** 3	**133** 1	**134** 1	**135** 3
136 1	**137** 4	**138** 1	**139** 2	**140** 3	**141** 4	**142** 4	**143** 1	**144** 2	**145** 2	**146** 3	**147** 4	**148** 2	**149** 3	**150** 3
151 1	**152** 3	**153** 2	**154** 1	**155** 1	**156** 1	**157** 3	**158** 1	**159** 2	**160** 1	**161** 1	**162** 2	**163** 2	**164** 2	**165** 4
166 4	**167** 4	**168** 4	**169** 4	**170** 3	**171** 2	**172** 2	**173** 3	**174** 2	**175** 1	**176** 3	**177** 2	**178** 3	**179** 2	**180** 1
181 2	**182** 1	**183** 3	**184** 1	**185** 2	**186** 3	**187** 3	**188** 1	**189** 1	**190** 1	**191** 1	**192** 1	**193** 2	**194** 2	**195** 1
196 4	**197** 3	**198** 3	**199** 1	**200** 2										

Quick Sarkari

Quick Sarkari

Thank you for studying with QuickSarkari!

Get the latest Sarkari Naukri notifications, admit cards, results, answer keys and free previous-year papers first - follow us on WhatsApp and Telegram.

Visit www.quicksarkari.com

Join our WhatsApp Channel

https://whatsapp.com/channel/0029VaxxbrREquiPoXTWM229

Join our Telegram Channel

https://t.me/quick_sarkari

Share this PDF with your friends preparing for DSSSB exams.