DSSSB PREVIOUS YEAR PAPER WITH ANSWER KEY

DSSSB Forest Guard

10 July 2026 · Shift 1

डीएसएसएसबी वन रक्षक – 10 जुलाई 2026, शिफ्ट 1 का प्रश्न पत्र, उत्तर कुंजी सहित

200	120 min	1 / −0.25	EN + HI
Questions / प्रश्न	Duration / समय	Marks per Q / अंक	Language / भाषा

Sections: General Intelligence and Reasoning Ability, General Awareness, Arithmetical and Numerical Ability, English Language and Comprehension, Hindi Language and Comprehension

INSIDE THIS PDF / इस PDF में

Question Paper in English + Hindi with Answer Key (correct option marked in green) + answer table Page 2–43
प्रश्न पत्र अंग्रेज़ी + हिंदी में, उत्तर कुंजी सहित (सही विकल्प हरे रंग में) + उत्तर तालिका

HOW TO USE THIS PAPER / इस पेपर का उपयोग कैसे करें

1. Attempt the paper first as a timed online mock test (link below).
   पहले नीचे दिए लिंक से इसे टाइमर के साथ ऑनलाइन मॉक टेस्ट के रूप में हल करें।
2. Check your score, section-wise analysis and solutions online.
   ऑनलाइन अपना स्कोर, खंड-वार विश्लेषण और हल देखें।
3. Use this PDF for revision. Correct answers are shown in green.
   दोहराने के लिए इस PDF का उपयोग करें। सही उत्तर हरे रंग में दिए गए हैं।

Attempt this paper as a FREE online mock test

इस पेपर को फ्री ऑनलाइन मॉक टेस्ट के रूप में हल करें – टाइमर, स्कोर और हल के साथ

https://quicksarkari.com/dsssb-forest-guard-10-july-2026-shift-1-mock-test/

All DSSSB Forest Guard papers and mock tests: **quicksarkari.com/dsssb-mock-test/#forest-guard**

Join WhatsApp Channel | Join Telegram Channel

DSSSB Forest Guard – Question Paper (English + Hindi)

DSSSB वन रक्षक – प्रश्न पत्र (अंग्रेज़ी + हिंदी)

Exam held on 10 July 2026, Shift 1 · 200 questions · correct answers marked ✔ in green
परीक्षा तिथि 10 जुलाई 2026, शिफ्ट 1 · 200 प्रश्न · सही उत्तर हरे रंग में ✔ से चिह्नित

> The official paper for this shift was in English. The Hindi version of each question is a translation prepared by QuickSarkari; the language-section questions are shown as asked.
> इस शिफ्ट का आधिकारिक प्रश्न पत्र अंग्रेज़ी में था। प्रत्येक प्रश्न का हिंदी संस्करण QuickSarkari द्वारा तैयार किया गया अनुवाद है; भाषा खंड के प्रश्न मूल रूप में दिए गए हैं।

General Intelligence and Reasoning Ability

Q.1 Refer to the following letter, symbol series and answer the question that follows. Counting is to be done from left to right only.
(Left) X R # B K £ Y © G P # © % Z © Z & & U € Y P (Right)
How many such symbols are there, each of which is immediately preceded by a letter and also immediately followed by a letter?

निम्नलिखित अक्षर, प्रतीक श्रृंखला का संदर्भ लीजिए और दिए गए प्रश्न का उत्तर दीजिए। गिनती केवल बाएं से दाएं की जानी है।
(बाएं) X R # B K £ Y © G P # © % Z © Z & & U € Y P (दाएं)
ऐसे कितने प्रतीक हैं, जिनमें से प्रत्येक के ठीक पहले एक अक्षर है और ठीक बाद में भी एक अक्षर है?

(1) 4
(2) 6
(3) 5 ✔
(4) 7

Q.2 A, B, C, Q, R and S live on six different floors of the same building. The lowermost floor of the building is numbered 1, the floor above it is numbered 2, and so on till the topmost floor is numbered 6.
Q lives on floor number 5. B lives on the floor above Q. Only R lives on a floor below C. A lives on an even-numbered floor.
How many persons live below S?

A, B, C, Q, R और S एक ही इमारत के छह अलग-अलग तलों पर रहते हैं। इमारत में सबसे नीचे वाले तल का क्रमांक 1 है, उसके ऊपर वाले तल का क्रमांक 2 है और इसी तरह सबसे ऊपर वाले तल का क्रमांक 6 है।
Q तल क्रमांक 5 पर रहता है। B, Q के ऊपर वाले तल पर रहता है। केवल R, C के नीचे वाले तल पर रहता है। A सम क्रमांक वाले तल पर रहता है।
S के नीचे कितने व्यक्ति रहते हैं?

(1) Three / तीन
(2) Four / चार
(3) One / एक
(4) Two / दो ✔

Q.3 If five boxes P, Q, R, S, T are placed one above the other in such a way that S is not placed at the bottom, R is placed immediately above P and Q is above T, then which of the following can be at the bottom?

यदि पांच डिब्बे P, Q, R, S, T एक के ऊपर एक इस प्रकार रखे गए हैं कि S सबसे नीचे नहीं रखा गया है, R, P के ठीक ऊपर रखा गया है और Q, T के ऊपर है, तो निम्नलिखित में से कौन-सा सबसे नीचे हो सकता है?

(1) T ✔
(2) S
(3) Q
(4) R

Q.4 Refer to the following series and answer the question given below. (Counting is to be done from left to right only) (All numbers are single-digit numbers only)
(Left) 8 9 5 5 1 3 2 7 9 8 6 6 3 2 8 6 9 7 3 4 5 8 5 7 4 2 4 (Right)
How many such even numbers are there, each of which is immediately preceded by an odd number and also immediately followed by an odd number?

निम्नलिखित शृंखला का संदर्भ लीजिए और नीचे दिए गए प्रश्न का उत्तर दें। (गिनती केवल बाएं से दाएं की जानी है) (सभी संख्याएं केवल एक-अंकीय संख्याएं हैं)
(बाएं) 8 9 5 5 1 3 2 7 9 8 6 6 3 2 8 6 9 7 3 4 5 8 5 7 4 2 4 (दाएं)
ऐसी कितनी सम संख्याएं हैं, जिनमें से प्रत्येक के ठीक पहले एक विषम संख्या है और ठीक बाद में भी एक विषम संख्या है?

(1) 2
(2) **3** ✔
(3) 4
(4) 5

Q.5 In a row of 45 people facing north, Vaibhav is 19th from the right end. If Nisha sits ninth to the left of Vaibhav, what is Nisha's position from the left end of the line?

उत्तर की ओर अभिमुख 45 व्यक्तियों की एक पंक्ति में, वैभव दाएं छोर से 19th स्थान पर है। यदि निशा, वैभव के बाईं ओर नौवें स्थान पर बैठी है, तो पंक्ति के बाएं छोर से निशा का स्थान क्या है?

(1) 19th
(2) 17th
(3) 20th
(4) **18th** ✔

Q.6 This question is based on the five, three-digit numbers given below.
(Left) 583 283 493 147 564 (Right)
(Example- 697 – First digit = 6, second digit = 9 and third digit = 7)
NOTE - All operations to be done from left to right.
What will be the resultant if the second digit of the second highest number is added to the third digit of the lowest number?

यह प्रश्न नीचे दी गई तीन अंकों वाली पांच संख्याओं पर आधारित है।
(बाएं) 583 283 493 147 564 (दाएं)
(उदाहरण- 697 – पहला अंक = 6, दूसरा अंक = 9 और तीसरा अंक = 7)
नोट - सभी संक्रियाएं बाएं से दाएं की जानी हैं।
यदि दूसरी सबसे बड़ी संख्या के दूसरे अंक को सबसे छोटी संख्या के तीसरे अंक में जोड़ा जाए, तो परिणाम क्या होगा?

(1) 16
(2) 15
(3) 14
(4) **13** ✔

QuickSarkari.com | WhatsApp Channel | Telegram: t.me/quick_sarkari

Q.7 In a certain code language, A + B means 'A is the sister of B'
A – B means 'A is the brother of B'
A x B means 'A is the mother of B'
A ÷ B means 'A is the father of B'
If 'Y ÷ F – B x S + R', then how is S related to F?
एक निश्चित कूट भाषा में, A + B का अर्थ है 'A, B की बहन है'
A – B का अर्थ है 'A, B का भाई है'
A x B का अर्थ है 'A, B की माता है'
A ÷ B का अर्थ है 'A, B का पिता है'
यदि 'Y ÷ F – B x S + R' है, तो S का F से क्या संबंध है?

(1) Brother's son / भाई का पुत्र
(2) Sister's daughter / बहन की पुत्री ✔
(3) Sister's son / बहन का पुत्र
(4) Brother's daughter / भाई की पुत्री

Q.8 Seven boxes P, Q, R, S, T, U and V are kept one over the other but not necessarily in the same order. V is kept second from the bottom. Only four boxes are kept between V and P. Only Q is kept between P and S. T is kept immediately above R. Which box is third from the top?
सात बक्से P, Q, R, S, T, U और V एक के ऊपर एक रखे गए हैं, लेकिन जरूरी नहीं कि इसी क्रम में हों। V को नीचे से दूसरे स्थान पर रखा गया है। V और P के बीच केवल चार बक्से रखे गए हैं। P और S के बीच केवल Q रखा गया है। T को R के ठीक ऊपर रखा गया है। ऊपर से तीसरा बक्सा कौन-सा है?

(1) V
(2) S ✔
(3) T
(4) U

Q.9 In a certain code language, 'UNDO' is coded as '9248' and 'NODS' is coded as '4921'.What is the code for 'S' in the given code language?
एक निश्चित कूट भाषा में, 'UNDO' को '9248' के रूप में कूटबद्ध किया जाता है और 'NODS' को '4921' के रूप में कूटबद्ध किया जाता है। दी गई कूट भाषा में 'S' के लिए कूट क्या है?

(1) 9
(2) 2
(3) 1 ✔
(4) 4

Q.10 Which of the following letter-clusters should replace # and % so that the pattern and relationship followed between the letter-cluster pair on the left side of :: is the same as that on the right side of :: ?
: XQO :: LQT : %
निम्नलिखित में से कौन-से अक्षर-समूह # और % को प्रतिस्थापित करने चाहिए ताकि :: के बाईं ओर के अक्षर-समूह युग्म के बीच अनुसरित पैटर्न और संबंध वही हो, जो :: के दाईं ओर के अक्षर-समूह युग्म के बीच है?
: XQO :: LQT : %

(1) # = YSQ , % = JPS
(2) # = VIJ , % = MOS
(3) # = ZRP , % = IOR
(4) # = ZRP , % = JPS ✔

Q.11 Each vowel in the word BIDARKA is replaced by the letter immediately following it in the English alphabetical order and each consonant is replaced by the letter immediately preceding it in the English alphabetical order. How many letters will appear exactly twice in the letter-cluster thus formed?

BIDARKA शब्द के प्रत्येक स्वर को अंग्रेजी वर्णमाला क्रम में उसके ठीक बाद वाले अक्षर से बदल दिया जाता है और प्रत्येक व्यंजन को अंग्रेजी वर्णमाला क्रम में उससे ठीक पहले वाले अक्षर से बदल दिया जाता है। इस प्रकार बने अक्षर-समूहों में कितने अक्षर ठीक दो बार आएंगे?

(1) One / एक
(2) None / एक भी नहीं
(3) Three / तीन
(4) Two / दो ✔

Q.12 In a code language, 'BANK' is coded as 'ECQM' and 'FIRM' is coded as 'IKUO'. How will 'BOND' be coded in the same language?

एक कूट भाषा में, 'BANK' को 'ECQM' के रूप में कूटबद्ध किया जाता है और 'FIRM' को 'IKUO' के रूप में कूटबद्ध किया जाता है। उसी भाषा में 'BOND' को किस प्रकार कूटबद्ध किया जाएगा?

(1) EUQF
(2) EQQF ✔
(3) EQFF
(4) EQUF

Q.13 Refer to the following letter, symbol series and answer the question that follows. Counting is to be done from left to right only.
(Left) S O % X D © N € X # * # Y H € % © T J € W G (Right)
How many such letters are there, each of which is immediately preceded by a letter and immediately followed by a symbol?

निम्नलिखित अक्षर, प्रतीक श्रृंखला का संदर्भ लीजिए और दिए गए प्रश्न का उत्तर दीजिए। गिनती केवल बाएं से दाएं की जानी है।
(बाएं) S O % X D © N € X # * # Y H € % © T J € W G (दाएं)
ऐसे कितने अक्षर हैं, जिनमें से प्रत्येक के ठीक पहले एक अक्षर है और ठीक बाद में एक प्रतीक है?

(1) 3
(2) 4 ✔
(3) 6
(4) 5

Q.14 Seven persons, R, S, T, V, W, X and Y, are sitting in a straight row, facing north. Only two persons sit to the left of W, and only three persons sit between W and T. S sits second to the right of W, and only two persons sit between S and V. X sits somewhere to the right of Y but to the left of R. How many persons sit to the right of X?

सात व्यक्ति, R, S, T, V, W, X और Y, एक सीधी पंक्ति में उत्तर की ओर अभिमुख होकर बैठे हैं। W के बाईं ओर केवल दो व्यक्ति बैठे हैं, और W तथा T के बीच केवल तीन व्यक्ति बैठे हैं। S, W के दाईं ओर दूसरे स्थान पर बैठा है, और S तथा V के बीच केवल दो व्यक्ति बैठे हैं। X, Y के दाईं ओर लेकिन R के बाईं ओर किसी स्थान पर बैठा है। X के दाईं ओर कितने व्यक्ति बैठे हैं?

(1) Two / दो
(2) Three / तीन ✔
(3) One / एक
(4) None / एक भी नहीं

Q.15 Seven individuals, D, E, L, M, N, O and Q, are seated around a circular table, all facing towards the center. E sits to the immediate right of Q. Only three people sit between E and L when counted from the left of E. Only three people sit between Q and D when counted from the right of D. N sits to the immediate right of M. How many people sit between O and M when counted from the left of M?

सात व्यक्ति, D, E, L, M, N, O और Q, एक वृत्ताकार मेज के चारों ओर केंद्र की ओर अभिमुख होकर बैठे हैं। E, Q के ठीक दाईं ओर बैठा है। E के बाईं ओर से गिनने पर E और L के बीच केवल तीन व्यक्ति बैठे हैं। D के दाईं ओर से गिनने पर Q और D के बीच केवल तीन व्यक्ति बैठे हैं। N, M के ठीक दाईं ओर बैठा है। M के बाईं ओर से गिनने पर O और M के बीच कितने व्यक्ति बैठे हैं?

(1) Four / चार
(2) **Two / दो ✔**
(3) One / एक
(4) Three / तीन

Q.16 Refer to the following number, symbol series and answer the question. Counting is to be done from left to right only.
(Left) 7 $ 3 @ 2 % 6 # 9 & 1 Ω 5 * 8 £ 4 (Right)
If all the symbols are removed from the series, which of the following will be seventh from the right?

निम्नलिखित संख्या, प्रतीक श्रृंखला का संदर्भ लीजिए और प्रश्न का उत्तर दीजिए। गिनती केवल बाएं से दाएं की जानी है।
(बाएं) 7 $ 3 @ 2 % 6 # 9 & 1 Ω 5 * 8 £ 4 (दाएं)
यदि श्रृंखला से सभी प्रतीक हटा दिए जाएं, तो निम्नलिखित में से कौन-सा दाएं से सातवें स्थान पर होगा?

(1) 1
(2) **2 ✔**
(3) 4
(4) 6

Q.17 Seven people, K, L, S, T, U, V and W, are sitting around a circular table facing the center of the table. W sits third to the right of L. Only two people sit between K and L when counted from the right of K. Only three people sit between W and S when counted from the right of S. U sits to the immediate right of V. Who sits second to the right of T?

सात व्यक्ति, K, L, S, T, U, V और W, एक वृत्ताकार मेज के चारों ओर मेज के केंद्र की ओर अभिमुख होकर बैठे हैं। W, L के दाईं ओर तीसरे स्थान पर बैठा है। K के दाईं ओर से गिनने पर K और L के बीच केवल दो व्यक्ति बैठे हैं। S के दाईं ओर से गिनने पर W और S के बीच केवल तीन व्यक्ति बैठे हैं। U, V के ठीक दाईं ओर बैठा है। T के दाईं ओर दूसरे स्थान पर कौन बैठा है?

(1) U
(2) W
(3) V
(4) **L ✔**

Q.18 Select the pair which follows the same pattern as that followed by the two set of pairs given below. Both pairs follow the same pattern.
GMJ : EKH VZT : TXR

उस युग्म का चयन करें जो उसी पैटर्न का अनुसरण करता है जिसका अनुसरण नीचे दिए गए युग्मों के दो समुच्चय करते हैं। दोनों युग्म एक ही पैटर्न का अनुसरण करते हैं।
GMJ : EKH VZT : TXR

(1) **WRD : UPB ✔**
(2) YWZ : STW
(3) XVK : ZUH
(4) DEK : ACG

Q.19 ZWAY is related to CZDB in a certain way based on the English alphabetical order. In the same way, EBFD is related to HEIG. To which of the following is MJNL related to, following the same logic?

अंग्रेजी वर्णमाला क्रम के आधार पर ZWAY एक निश्चित प्रकार से CZDB से संबंधित है। उसी प्रकार, EBFD, HEIG से संबंधित है। समान तर्क का अनुसरण करते हुए, MJNL निम्नलिखित में से किससे संबंधित है?

(1) PMQO ✔

(2) PLPO

(3) PNPX

(4) PMPO

Q.20 A @ B means 'A is the sister of B'

A & B means 'A is the husband of B'

A # B means 'A is the mother of B'

If E & F # G & H @ I, then how is E related to H?

A @ B का अर्थ है 'A, B की बहन है'

A & B का अर्थ है 'A, B का पति है'

A # B का अर्थ है 'A, B की माता है'

यदि E & F # G & H @ I है, तो E का H से क्या संबंध है?

(1) Husband's father / पति के पिता ✔

(2) Mother's father / माता के पिता

(3) Father / पिता

(4) Husband's brother / पति के भाई

Q.21 Which number will replace the question mark (?) in the following series?

28, 29, 37, 64, ?, 253

निम्नलिखित श्रृंखला में प्रश्न चिह्न (?) के स्थान पर कौन-सी संख्या आएगी?

28, 29, 37, 64, ?, 253

(1) 131

(2) 128 ✔

(3) 130

(4) 129

Q.22 What should come in place of '?' in the given series?

9, 21, 45, 81, 129, ?

दी गई श्रृंखला में '?' के स्थान पर क्या आना चाहिए?

9, 21, 45, 81, 129, ?

(1) 201

(2) 189 ✔

(3) 193

(4) 187

Q.23 Based on the English alphabetical order, three of the following four letter-cluster pairs are alike in a certain way and thus form a group. Which is the one that does not belong to that group? (Note: The odd man out is not based on the number of consonants/vowels or their position in the letter-cluster.)

अंग्रेजी वर्णमाला क्रम के आधार पर, निम्नलिखित चार अक्षर-समूह युग्मों में से तीन किसी निश्चित प्रकार से एकसमान हैं और इस प्रकार एक समूह बनाते हैं। वह कौन-सा युग्म है जो उस समूह से संबंधित नहीं है? (नोट: असंगत युग्म, व्यंजनों/स्वरों की संख्या या अक्षर-समूह में उनके स्थान पर आधारित नहीं है।)

(1) DF - IK

(2) JL - OR ✔

(3) PR - UW

(4) BD - GI

Q.24 What should come in place of ? in the given series?

33 38 46 57 71 ?

दी गई श्रृंखला में ? के स्थान पर क्या आना चाहिए?

33 38 46 57 71 ?

(1) 90

(2) 88 ✔

(3) 89

(4) 87

Q.25 What should come in place of '?' in the given series?

456 458 462 468 476 ?

दी गई श्रृंखला में '?' के स्थान पर क्या आना चाहिए?

456 458 462 468 476 ?

(1) 482

(2) 484

(3) 486 ✔

(4) 488

Q.26 If 'E' stands for '+' , 'F' stands for '-', 'G' stands for '÷' and 'H' stands for 'x' , what will be come in place of question mark '?' in the following equation?

14 G 7 E 6 H 3 F 1 = ?

यदि 'E' का अर्थ '+', 'F' का अर्थ '-', 'G' का अर्थ '÷' और 'H' का अर्थ 'x' है, तो निम्नलिखित समीकरण में प्रश्न चिह्न '?' के स्थान पर क्या आएगा?

14 G 7 E 6 H 3 F 1 = ?

(1) 19 ✔

(2) 9

(3) 16

(4) 18

QuickSarkari.com | WhatsApp Channel | Telegram: t.me/quick_sarkari

Q.27 If 'A' stands for '÷', 'B' stands for '×', 'C' stands for '+' and 'D' stands for '−', what will be come in place of the question mark '?' in the following equation?
73 D 273 C 10 B 154 A 7 = ?
यदि 'A' का अर्थ '÷', 'B' का अर्थ '×', 'C' का अर्थ '+' और 'D' का अर्थ '−' है, तो निम्नलिखित समीकरण में प्रश्न चिह्न '?' के स्थान पर क्या आएगा?
73 D 273 C 10 B 154 A 7 = ?

(1) 22
(2) **20 ✔**
(3) 25
(4) 21

Q.28 Based on the English alphabetical order, three of the following four letter-clusters are alike in a certain way and thus form a group. Which letter-cluster DOES NOT belong to that group?
(Note: The odd one out is not based on the number of consonants/vowels or their position in the letter-cluster.)
अंग्रेजी वर्णमाला क्रम के आधार पर, निम्नलिखित चार अक्षर-समूहों में से तीन किसी निश्चित प्रकार से एकसमान हैं और इस प्रकार एक समूह बनाते हैं। कौन-सा अक्षर-समूह उस समूह से संबंधित नहीं है?
(नोट: असंगत अक्षर-समूह, व्यंजनों/स्वरों की संख्या या अक्षर-समूह में उनके स्थान पर आधारित नहीं है।)

(1) KIEB
(2) BZVS
(3) **XVPQ ✔**
(4) TRNK

Q.29 Two sets of numbers are given below. In each set of numbers, certain mathematical operation(s) on the first number result(s) in the second number. Similarly, certain mathematical operation(s) on the second number result(s) in the third number and so on. Which of the given options follows the same set of operations as in the given sets?
(Note: Operations should be performed on the whole numbers, without breaking down the numbers into their constituent digits. E.g. 13 – Operations on 13 such as adding/subtracting/multiplying to 13 can be performed. Breaking down 13 into 1 and 3 and then performing mathematical operations on 1 and 3 is not allowed.)
34 - 68 - 100 - 300; 54 - 108 - 140 - 420
नीचे संख्याओं के दो समुच्चय दिए गए हैं। संख्याओं के प्रत्येक समुच्चय में, पहली संख्या पर कुछ निश्चित गणितीय संक्रिया/संक्रियाएं करने पर दूसरी संख्या प्राप्त होती है। इसी प्रकार, दूसरी संख्या पर कुछ निश्चित गणितीय संक्रिया/संक्रियाएं करने पर तीसरी संख्या प्राप्त होती है, और इसी तरह आगे भी। दिए गए विकल्पों में से कौन-सा विकल्प संक्रियाओं के उसी समुच्चय का अनुसरण करता है जैसा कि दिए गए समुच्चयों में है?
(नोट: संक्रियाएं पूर्ण संख्याओं पर की जानी चाहिए, संख्याओं को उनके घटक अंकों में तोड़े बिना। उदाहरण के लिए 13 – 13 पर संक्रियाएं जैसे 13 में जोड़ना/घटाना/गुणा करना आदि किया जा सकता है। 13 को 1 और 3 में तोड़ना और फिर 1 और 3 पर गणितीय संक्रियाएं करना वर्जित है।)
34 - 68 - 100 - 300; 54 - 108 - 140 - 420

(1) **32 - 64 - 96 - 288 ✔**
(2) 44 - 88 - 176 - 352
(3) 36 - 72 - 104 - 208
(4) 54 - 108 - 140 - 280

Q.30 In the following number-pairs, the second number is obtained by applying certain mathematical operations to the first number. Select the set in which the numbers are related in the same way as are the numbers of the following sets.
(NOTE: Operations should be performed on the whole numbers, without breaking down the numbers into its constituent digits. E.g. 13 – Operations on 13 such as adding / subtracting /multiplying etc. to 13 can be performed. Breaking down 13 into 1 and 3 and then performing mathematical operations on 1 and 3 is not allowed)
54 - 44 23 - 13

निम्नलिखित संख्या-युग्मों में, पहली संख्या पर कुछ निश्चित गणितीय संक्रियाएं करके दूसरी संख्या प्राप्त की जाती है। उस समुच्चय का चयन करें जिसमें संख्याएं उसी प्रकार संबंधित हैं जिस प्रकार निम्नलिखित समुच्चयों की संख्याएं संबंधित हैं।
(नोट: संक्रियाएं पूर्ण संख्याओं पर की जानी चाहिए, संख्याओं को उनके घटक अंकों में तोड़े बिना। उदाहरण के लिए 13 – 13 पर संक्रियाएं जैसे 13 में जोड़ना/घटाना/गुणा करना आदि किया जा सकता है। 13 को 1 और 3 में तोड़ना और फिर 1 और 3 पर गणितीय संक्रियाएं करना वर्जित है।)
54 - 44 23 - 13

(1) 46 - 34
(2) 110 - 100 ✔
(3) 123 - 133
(4) 67 - 78

Q.31 Which of the following letter-clusters should replace # and % so that the pattern and relationship followed between the letter-cluster pair on the left side of :: is the same as that on the right side of :: ?
: KNI :: JMH : %

निम्नलिखित में से कौन-से अक्षर-समूह # और % को प्रतिस्थापित करने चाहिए ताकि :: के बाईं ओर के अक्षर-समूह युग्म के बीच अनुसरित पैटर्न और संबंध वही हो, जो :: के दाईं ओर के अक्षर-समूह युग्म के बीच है?
: KNI :: JMH : %

(1) # = NJN % = EMK
(2) # = HUN % = EMH
(3) # = PSN % = EHC ✔
(4) # = PHJ % = ENJ

Q.32 IEHL is related to HDGK in a certain way based on the English alphabetical order. In the same way, HDGK is related to GCFJ. To which of the following is LHKO related, following the same logic?
अंग्रेजी वर्णमाला क्रम के आधार पर IEHL एक निश्चित प्रकार से HDGK से संबंधित है। उसी प्रकार, HDGK, GCFJ से संबंधित है। समान तर्क का अनुसरण करते हुए, LHKO निम्नलिखित में से किससे संबंधित है?

(1) KGIN
(2) KFIN
(3) KHIO
(4) KGJN ✔

Q.33 Based on the English alphabetical order, three of the following four are alike in a certain way and thus form a group. Which is the one that does not belong to that group?
(Note: The odd one out is not based on the number of consonants/vowels or their position in the letter-cluster.)
अंग्रेजी वर्णमाला क्रम के आधार पर, निम्नलिखित चार में से तीन किसी निश्चित प्रकार से एकसमान हैं और इस प्रकार एक समूह बनाते हैं। वह कौन-सा है जो उस समूह से संबंधित नहीं है?
(नोट: असंगत, व्यंजनों/स्वरों की संख्या या अक्षर-समूह में उनके स्थान पर आधारित नहीं है।)

(1) EFH ✔
(2) MQK
(3) KOI
(4) DHB

Q.34 Select the option figure in which the given figure (X) is embedded as its part (rotation is NOT allowed).

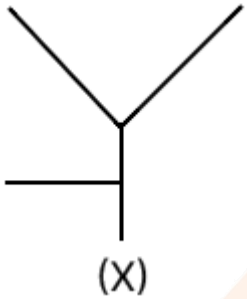

उस विकल्प आकृति का चयन करें जिसमें दी गई आकृति (X) उसके भाग के रूप में सन्निहित है (घुमाने की अनुमति नहीं है)।

(1)

✔

(2)
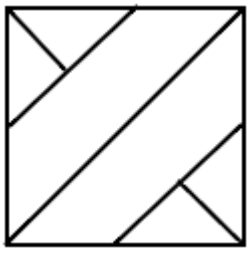

(3)
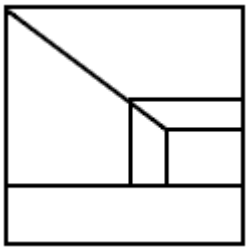

(4)
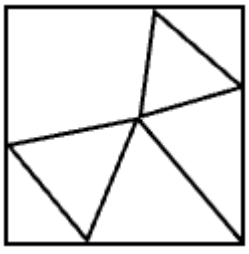

QuickSarkari.com | WhatsApp Channel | Telegram: t.me/quick_sarkari

Q.35 If 'A' stands for '÷', 'B' stands for '×', 'C' stands for '+' and 'D' stands for '−', what will be come in place of the question mark '?' in the following equation?
55 A 11 C 5 B 6 D 7 = ?
यदि 'A' का अर्थ '÷', 'B' का अर्थ '×', 'C' का अर्थ '+' और 'D' का अर्थ '−' है, तो निम्नलिखित समीकरण में प्रश्न चिह्न '?' के स्थान पर क्या आएगा?
55 A 11 C 5 B 6 D 7 = ?

(1) 24
(2) 20
(3) **28** ✔
(4) 27

Q.36 What will come in the place of '?' in the following equation, if '+' and 'x' are interchanged and '-' and '÷' are interchanged?
8 + 5 ÷ 106 - 2 × 25 = ?
यदि '+' और 'x' को आपस में बदल दिया जाए तथा '-' और '÷' को आपस में बदल दिया जाए, तो निम्नलिखित समीकरण में '?' के स्थान पर क्या आएगा?
8 + 5 ÷ 106 - 2 × 25 = ?

(1) 23
(2) 7
(3) 16
(4) **12** ✔

Quick Sarkari

Q.37 Select the option figure in which the given figure (X) is embedded as its part (rotation is NOT allowed).

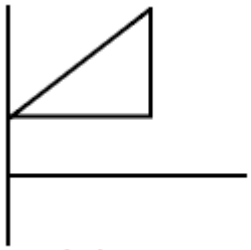

(X)

उस विकल्प आकृति का चयन करें जिसमें दी गई आकृति (X) उसके भाग के रूप में सन्निहित है (घुमाने की अनुमति नहीं है)।

(1) 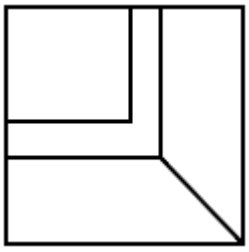

(2) 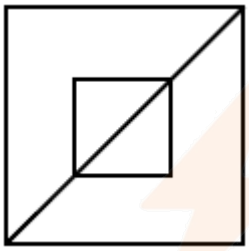

(3) 

(4) 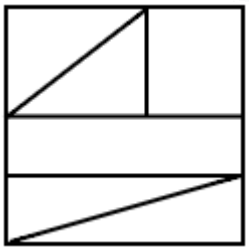

✔

Q.38 Based on the English alphabetical order, three of the following four letter-cluster pairs are alike in a certain way and thus form a group. Which is the one that does not belong to that group?
(Note: The odd one out is not based on the number of consonants/vowels or their position in the letter-cluster.)

अंग्रेजी वर्णमाला क्रम के आधार पर, निम्नलिखित चार अक्षर-समूह युग्मों में से तीन किसी निश्चित प्रकार से एकसमान हैं और इस प्रकार एक समूह बनाते हैं। वह कौन-सा युग्म है जो उस समूह से संबंधित नहीं है?
(नोट: असंगत युग्म, व्यंजनों/स्वरों की संख्या या अक्षर-समूह में उनके स्थान पर आधारित नहीं है।)

(1) CA–DB
(2) **RP–RS ✔**
(3) DB–EC
(4) TR–US

QuickSarkari.com | WhatsApp Channel | Telegram: t.me/quick_sarkari

Q.39 Select the set in which the numbers are related in the same way as are the numbers of the following set.
(NOTE: Operations should be performed on the whole numbers, without breaking down the numbers into their constituent digits. E.g. 13 – Operations on 13 such as adding/deleting/multiplying etc. to 13 can be performed. Breaking down 13 into 1 and 3 and then performing mathematical operations on 1 and 3 is not allowed.)
(36, 88, 8)
(26, 64, 6)

उस समुच्चय का चयन करें जिसमें संख्याएं उसी प्रकार संबंधित हैं जिस प्रकार निम्नलिखित समुच्चय की संख्याएं संबंधित हैं।
(नोट: संक्रियाएं पूर्ण संख्याओं पर की जानी चाहिए, संख्याओं को उनके घटक अंकों में तोड़े बिना। उदाहरण के लिए 13 – 13 पर संक्रियाएं जैसे 13 में जोड़ना/हटाना/गुणा करना आदि किया जा सकता है। 13 को 1 और 3 में तोड़ना और फिर 1 और 3 पर गणितीय संक्रियाएं करना वर्जित है।)
(36, 88, 8)
(26, 64, 6)

(1) (46, 112, 10) ✔
(2) (32, 78, 6)
(3) (41, 98, 9)
(4) (21, 54, 5)

Q.40 What will come in place of the question mark (?) in the following equation, if '+' and '–' are interchanged and '×' and '÷' are interchanged?
24 × 6 − 12 ÷ 2 + 20 = ?

यदि '+' और '–' को आपस में बदल दिया जाए तथा '×' और '÷' को आपस में बदल दिया जाए, तो निम्नलिखित समीकरण में प्रश्न चिह्न (?) के स्थान पर क्या आएगा?
24 × 6 − 12 ÷ 2 + 20 = ?

(1) 11
(2) 8 ✔
(3) 3
(4) 0

General Awareness

Q.41 Which of the following statements is correct about the Padma Awards 2025?

पद्म पुरस्कार 2025 के बारे में निम्नलिखित में से कौन-सा कथन सही है?

(1) The Padma Awards 2025 featured a record 25 Padma Vibhushan recipients. / पद्म पुरस्कार 2025 में रिकॉर्ड 25 पद्म विभूषण प्राप्तकर्ता शामिल थे।
(2) The Padma Bhushan is India's highest civilian honour. / पद्म भूषण भारत का सर्वोच्च नागरिक सम्मान है।
(3) PR Sreejesh was awarded the Padma Bhushan for his contributions to football. / पी.आर. श्रीजेश को फुटबॉल में उनके योगदान के लिए पद्म भूषण से सम्मानित किया गया।
(4) The Padma Awards 2025 had a total of 139 recipients, including 113 Padma Shri awards. / पद्म पुरस्कार 2025 में कुल 139 प्राप्तकर्ता थे, जिनमें 113 पद्म श्री पुरस्कार शामिल थे। ✔

Q.42 Sangam literature is believed to have been composed in assemblies known as "Sangams." What does term "Sangam" refer to?

माना जाता है कि संगम साहित्य की रचना "संगम" नामक सभाओं में की गई थी। "संगम" शब्द किसे संदर्भित करता है?

(1) An assembly or academy of Tamil poets and scholars / तमिल कवियों और विद्वानों की एक सभा या अकादमी ✔

(2) A marketplace for trade and cultural exchange / व्यापार और सांस्कृतिक आदान-प्रदान के लिए एक बाज़ार

(3) A royal court of South Indian kings / दक्षिण भारतीय राजाओं का एक राजदरबार

(4) A religious congregation of temple priests / मंदिर के पुजारियों की एक धार्मिक सभा

Q.43 According to the 'State of States' report released in February 2025, in how many Sustainable Development Goals (SDGs) does India lag behind?

फरवरी 2025 में जारी 'स्टेट ऑफ स्टेट्स' रिपोर्ट के अनुसार, भारत कितने सतत विकास लक्ष्यों (SDGs) में पीछे है?

(1) 15

(2) 9 ✔

(3) 6

(4) 12

Q.44 What is the goal of the NVS-02 satellite that ISRO launched in 2025?

ISRO द्वारा 2025 में प्रक्षेपित NVS-02 उपग्रह का लक्ष्य क्या है?

(1) Navigation system enhancement / नेविगेशन प्रणाली में सुधार ✔

(2) Space debris monitoring / अंतरिक्ष मलबे की निगरानी

(3) Manned spaceflight / मानवयुक्त अंतरिक्ष उड़ान

(4) Earth observation / पृथ्वी अवलोकन

Q.45 Which economic activity is NOT supported by the evidence of the Indus Valley Civilisation?

सिंधु घाटी सभ्यता के साक्ष्यों द्वारा किस आर्थिक गतिविधि का समर्थन नहीं किया जाता है?

(1) Coin making / सिक्के बनाने ✔

(2) Pottery making / मिट्टी के बर्तन बनाने

(3) Trade / व्यापार

(4) Bead making / मनके बनाने

Q.46 Which organisation is the implementing agency for the PM-YUVA 3.0 scheme?

कौन-सा संगठन, PM-YUVA 3.0 योजना के लिए कार्यान्वयन एजेंसी है?

(1) University Grants Commission (UGC) / विश्वविद्यालय अनुदान आयोग (UGC)

(2) Sahitya Akademi / साहित्य अकादमी

(3) National Book Trust (NBT), India / नेशनल बुक ट्रस्ट (NBT), भारत ✔

(4) Indian Council for Cultural Relations (ICCR) / भारतीय सांस्कृतिक संबंध परिषद (ICCR)

Q.47 What was the major highlight of Prime Minister Modi's visit to France from 10 to 12 February 2025?
प्रधानमंत्री मोदी की 10 से 12 फरवरी 2025 तक की फ्रांस यात्रा का प्रमुख आकर्षण क्या था?

(1) Co-chairing of the Artificial Intelligence Action Summit by India and France / भारत और फ्रांस द्वारा आर्टिफिशियल इंटेलिजेंस एक्शन समिट की सह-अध्यक्षता ✔

(2) Launch of a bilateral defence manufacturing corridor in South India / दक्षिण भारत में द्विपक्षीय रक्षा विनिर्माण कॉरिडोर का शुभारंभ

(3) Joint announcement of an India-France Climate Innovation Fund / भारत-फ्रांस जलवायु नवाचार कोष की संयुक्त घोषणा

(4) Signing of a Free Trade Agreement between India and France / भारत और फ्रांस के बीच मुक्त व्यापार समझौते पर हस्ताक्षर

Q.48 Who among the following was known as Rashtraguru and founded the Indian National Association in 1876?
निम्नलिखित में से कौन 'राष्ट्रगुरु' के नाम से जाने जाते थे और उन्होंने 1876 में इंडियन नेशनल एसोसिएशन की स्थापना की थी?

(1) Dadabhai Naoroji / दादाभाई नौरोजी

(2) Surendranath Banerjee / सुरेंद्रनाथ बनर्जी ✔

(3) Lala Lajpat Rai / लाला लाजपत राय

(4) Gopal Krishna Gokhale / गोपाल कृष्ण गोखले

Q.49 The Home Rule League was founded in 1916 by:
होम रूल लीग की स्थापना 1916 में किसके द्वारा की गई थी?

(1) Lala Lajpat Rai and Bipin Pal / लाला लाजपत राय और बिपिन पाल

(2) Mahatma Gandhi / महात्मा गांधी

(3) Annie Besant and Bal Gangadhar Tilak / एनी बेसेंट और बाल गंगाधर तिलक ✔

(4) Aurobindo Ghosh and Tilak / अरबिंदो घोष और तिलक

Q.50 What has the Ministry of Defence designated the year 2025 as?
रक्षा मंत्रालय ने वर्ष 2025 को किस रूप में नामित किया है?

(1) Year of Integration / एकीकरण वर्ष

(2) Year of Modernisation / आधुनिकीकरण वर्ष

(3) Year of Innovation / नवाचार वर्ष

(4) Year of Reforms / सुधार वर्ष ✔

Q.51 Sangam literature was composed in which classical Indian language?
संगम साहित्य की रचना किस शास्त्रीय भारतीय भाषा में की गई थी?

(1) Sanskrit / संस्कृत

(2) Prakrit / प्राकृत

(3) Tamil / तमिल ✔

(4) Pali / पाली

Q.52 Which of the following books was written by Amitav Ghosh in 2025?
निम्नलिखित में से कौन-सी पुस्तक 2025 में अमिताव घोष द्वारा लिखी गई थी?

(1) Wild Fictions : Essays / वाइल्ड फिक्शन्स : एसेज़ (Wild Fictions : Essays) ✔

(2) The Nutmeg's Curse / द नटमेग्स कर्स (The Nutmeg's Curse)

(3) The Living Mountain / द लिविंग माउंटेन (The Living Mountain)

(4) Jungle Nama / जंगल नामा (Jungle Nama)

Q.53 Which of the following areas of the Harappan city is defined as a platform about 6–7 metres high made of mud bricks, which served as the base for major constructions?

हड़प्पा शहर के निम्नलिखित में से किस क्षेत्र को कच्ची ईंटों से बने लगभग 6–7 मीटर ऊँचे चबूतरे के रूप में परिभाषित किया गया है, जो प्रमुख निर्माणों के आधार के रूप में कार्य करता था?

(1) Furrow / कुंड (Furrow)

(2) Citadel / दुर्ग (Citadel) ✔

(3) Bastion / बुर्ज (Bastion)

(4) Hoard / निधि (Hoard)

Q.54 Which organization partnered with Investor Education and Protection Fund Authority (IEPFA), to launch the Phase 2 of 'Niveshak Didi' initiative in April 2025?

अप्रैल 2025 में 'निवेशक दीदी' पहल के दूसरे चरण का शुभारंभ करने के लिए किस संगठन ने निवेशक शिक्षा और संरक्षण निधि प्राधिकरण (IEPFA) के साथ साझेदारी की?

(1) India Post Payments Bank (IPPB) / इंडिया पोस्ट पेमेंट्स बैंक (IPPB) ✔

(2) Reserve Bank of India / भारतीय रिज़र्व बैंक

(3) Securities and Exchange Board of India (SEBI) / भारतीय प्रतिभूति और विनिमय बोर्ड (SEBI)

(4) State Bank of India / भारतीय स्टेट बैंक

Q.55 Which staple crop was the focus of the first Asian pangenome project in May 2025?

मई 2025 में पहली एशियाई पैनजीनोम परियोजना का केंद्र कौन सी मुख्य फसल थी?

(1) Wheat / गेहूँ

(2) Rice / चावल ✔

(3) Barley / जौ

(4) Maize / मक्का

Q.56 Which Gupta ruler's achievements are recorded in the Allahabad Pillar Inscription (Prayag-Prashasti), composed by his court poet Harisena?

किस गुप्त शासक की उपलब्धियाँ, उसके दरबारी कवि हरिषेण द्वारा रचित इलाहाबाद स्तंभ अभिलेख (प्रयाग-प्रशस्ति) में दर्ज हैं?

(1) Chandragupta I / चंद्रगुप्त प्रथम

(2) Chandragupta II / चंद्रगुप्त द्वितीय

(3) Samudragupta / समुद्रगुप्त ✔

(4) Skandagupta / स्कंदगुप्त

Q.57 Besnagar pillar inscription of Garuda was found from which of the following districts of Madhya Pradesh?

गरुड़ का बेसनगर स्तंभ अभिलेख मध्य प्रदेश के निम्नलिखित में से किस जिले से प्राप्त हुआ था?

(1) Dhar / धार

(2) Gwalior / ग्वालियर

(3) Jabalpur / जबलपुर

(4) Vidisha / विदिशा ✔

Q.58 Which among the following released the 2024 Global Multidimensional Poverty Index (MPI)?
निम्नलिखित में से किसने 2024 का वैश्विक बहुआयामी गरीबी सूचकांक (MPI) जारी किया?

(1) United Nations Development Programme (UNDP) / संयुक्त राष्ट्र विकास कार्यक्रम (UNDP) ✔
(2) International Labour Organization (ILO) / अंतर्राष्ट्रीय श्रम संगठन (ILO)
(3) World Economic Forum (WEF) / विश्व आर्थिक मंच (WEF)
(4) World Bank and International Monetary Fund (IMF) / विश्व बैंक और अंतर्राष्ट्रीय मुद्रा कोष (IMF)

Q.59 Who led the soldier revolt in Bareilly in the First War of Independence?
प्रथम स्वतंत्रता संग्राम में बरेली में सैनिक विद्रोह का नेतृत्व किसने किया था?

(1) Kunwar Singh / कुंवर सिंह
(2) Tatya Tope / तात्या टोपे
(3) Rani Lakshmi Bai / रानी लक्ष्मीबाई
(4) Khan Bahadur Khan Rohilla / खान बहादुर खान रोहिल्ला ✔

Q.60 Which of the following countries is NOT a host of the FIFA World Cup 2026?
निम्नलिखित में से कौन-सा देश फीफा विश्व कप 2026 का मेज़बान नहीं है?

(1) United States of America / संयुक्त राज्य अमेरिका
(2) Mexico / मेक्सिको
(3) Costa Rica / कोस्टा रिका ✔
(4) Canada / कनाडा

Q.61 The energy possessed by a body due to its motion is called _____.
किसी पिंड में उसकी गति के कारण होने वाली ऊर्जा को _____ कहते हैं।

(1) Heat energy / ऊष्मा ऊर्जा
(2) Kinetic energy / गतिज ऊर्जा ✔
(3) Potential energy / स्थितिज ऊर्जा
(4) Chemical energy / रासायनिक ऊर्जा

Q.62 Tribunals in India are established to adjudicate disputes related to _____.
भारत में अधिकरणों की स्थापना _____ से संबंधित विवादों के न्यायनिर्णयन के लिए की जाती है।

(1) civil matters only / केवल दीवानी मामलों
(2) administrative and specialised areas / प्रशासनिक और विशेषीकृत क्षेत्रों ✔
(3) criminal matters only / केवल आपराधिक मामलों
(4) constitutional matters / संवैधानिक मामलों

Q.63 During the planned economy period before 1991, which regulatory mechanism was used to control private industries in India?
1991 से पूर्व की नियोजित अर्थव्यवस्था अवधि के दौरान, भारत में निजी उद्योगों को नियंत्रित करने के लिए किस नियामक तंत्र का उपयोग किया गया था?

(1) Industrial licensing and quota controls / औद्योगिक लाइसेंसिंग और कोटा नियंत्रण ✔
(2) Free trade liberalisation measures / मुक्त व्यापार उदारीकरण उपाय
(3) Deregulation economic reforms / विनियमन आर्थिक सुधार
(4) Free market competition policies / मुक्त बाजार प्रतिस्पर्धा नीतियां

Q.64 What is the main objective of the Bharatmala Pariyojana?

भारतमाला परियोजना का मुख्य उद्देश्य क्या है?

(1) Expanding air cargo infrastructure / हवाई कार्गो अवसंरचना का विस्तार

(2) Connecting rivers for inland transport / अंतर्देशीय परिवहन के लिए नदियों को जोड़ना

(3) Development of a robust national highway network / एक सुदृढ़ राष्ट्रीय राजमार्ग नेटवर्क का विकास ✔

(4) Building coastal ports for trade / व्यापार के लिए तटीय बंदरगाहों का निर्माण

Q.65 Which of the following statements defines an adiabatic process in thermodynamics?

निम्नलिखित में से कौन-सा कथन, ऊष्मागतिकी में एक रुद्धोष्म प्रक्रम को परिभाषित करता है?

(1) There is no heat exchange between the system and its surroundings / तंत्र और उसके परिवेश के बीच कोई ऊष्मा विनिमय नहीं होता है ✔

(2) The pressure of the system remains constant throughout the process / तंत्र का दाब पूरी प्रक्रिया के दौरान अपरिवर्ती रहता है

(3) The temperature of the system remains constant throughout the process / तंत्र का तापमान पूरी प्रक्रिया के दौरान अपरिवर्ती रहता है

(4) The volume of the system remains constant throughout the process / तंत्र का आयतन पूरी प्रक्रिया के दौरान अपरिवर्ती रहता

Q.66 Mushroom rocks are found in which of the following physiographic divisions of India?

छत्रक शैलें (Mushroom rocks) भारत के निम्नलिखित में से किस भूआकृतिक प्रभाग में पाई जाती हैं?

(1) Northern Plains / उत्तरी मैदान

(2) Islands / द्वीप समूह

(3) Coastal Plains / तटीय मैदान

(4) Thar Desert / थार मरूस्थल ✔

Q.67 By what other name is the tropical deciduous forest also known?

उष्णकटिबंधीय पर्णपाती वन को किस अन्य नाम से भी जाना जाता है?

(1) Dry Savanna forest / शुष्क सवाना वन (Dry Savanna forest)

(2) Desert forest / मरुस्थलीय वन (Desert forest)

(3) Monsoon forest / मानसून वन (Monsoon forest) ✔

(4) Shola forest / शोला वन (Shola forest)

Q.68 Which of the following ports is a tidal port of India?

निम्नलिखित में से कौन-सा बंदरगाह, भारत का एक ज्वारीय बंदरगाह है?

(1) Chennai / चेन्नई

(2) Kandla / कांडला ✔

(3) Pandu / पांडु

(4) Bengaluru / बेंगलुरु

Q.69 Which of the following institutional mechanisms is designed to digitally integrate infrastructure planning across ministries in India?

निम्नलिखित में से कौन-सा संस्थागत तंत्र भारत में मंत्रालयों के बीच अवसंरचना नियोजन को डिजिटल रूप से एकीकृत करने के लिए बनाया गया है?

(1) National Investment Board / राष्ट्रीय निवेश बोर्ड

(2) Finance Commission / वित्त आयोग

(3) PM Gati Shakti platform / पीएम गति शक्ति प्लेटफॉर्म ✔

(4) Central Statistics Office / केंद्रीय सांख्यिकी कार्यालय

Q.70 Section 6A of the Citizenship Act, 1955, grants Indian citizenship to immigrants who entered Assam during which of the following periods?

नागरिकता अधिनियम, 1955 की धारा 6A उन प्रवासियों को भारतीय नागरिकता प्रदान करती है जिन्होंने निम्नलिखित में से किस अवधि के दौरान असम में प्रवेश किया था?

(1) Between January 26, 1950 and January 1, 1966 / 26 जनवरी, 1950 और 1 जनवरी, 1966 के बीच

(2) Between January 1, 1966 and March 25, 1971 / 1 जनवरी, 1966 और 25 मार्च, 1971 के बीच ✔

(3) Before January 1, 1966 / 1 जनवरी, 1966 से पहले

(4) After March 25, 1971 / 25 मार्च, 1971 के बाद

Q.71 Which of the following is the main reason for urban migration in India?

भारत में शहरी प्रवास का मुख्य कारण निम्नलिखित में से क्या है?

(1) Better monsoon / बेहतर मानसून

(2) Pollution / प्रदूषण

(3) Employment opportunities / रोजगार के अवसर ✔

(4) Population control / जनसंख्या नियंत्रण

Q.72 Which Article of the Indian Constitution lets citizens approach the Supreme Court to protect their Fundamental Rights?

भारतीय संविधान का कौन-सा अनुच्छेद नागरिकों को अपने मौलिक अधिकारों की रक्षा के लिए सर्वोच्च न्यायालय जाने की अनुमति देता है?

(1) Article 33 / अनुच्छेद 33

(2) Article 32 / अनुच्छेद 32 ✔

(3) Article 36 / अनुच्छेद 36

(4) Article 30 / अनुच्छेद 30

Q.73 According to United Nations, at the rate of progress as of 2023, the estimated time to achieve equal representation in workplace leadership positions is closest to _____.

संयुक्त राष्ट्र के अनुसार, 2023 तक की प्रगति की दर पर, कार्यस्थल पर नेतृत्व पदों में समान प्रतिनिधित्व प्राप्त करने का अनुमानित समय _____ के सबसे निकट है।

(1) 300 years / 300 वर्ष

(2) 140 years / 140 वर्ष ✔

(3) 47 years / 47 वर्ष

(4) 286 years / 286 वर्ष

Q.74 Vital statistics including registration of births and deaths, comes under which schedule of Indian constitution?

जन्म और मृत्यु के पंजीकरण सहित महत्वपूर्ण आंकड़े, भारतीय संविधान की किस अनुसूची के अंतर्गत आते हैं?

(1) Tenth Schedule / दसवीं अनुसूची

(2) Eleventh Schedule / ग्यारहवीं अनुसूची

(3) Seventh Schedule / सातवीं अनुसूची ✔

(4) Ninth Schedule / नौवीं अनुसूची

Q.75 Which article of Indian constitution provide Power to Parliament to amend the Constitution and procedure?

भारतीय संविधान का कौन-सा अनुच्छेद संसद को संविधान में संशोधन करने की शक्ति और उसकी प्रक्रिया प्रदान करता है?

(1) Article 368 / अनुच्छेद 368 ✔

(2) Article 398 / अनुच्छेद 398

(3) Article 379 / अनुच्छेद 379

(4) Article 369 / अनुच्छेद 369

Q.76 Which of the following is a major goal of rural electrification programmes in India?

निम्नलिखित में से कौन-सा, भारत में ग्रामीण विद्युतीकरण कार्यक्रमों का एक प्रमुख लक्ष्य है?

(1) High tariff rates / उच्च प्रशुल्क दरें

(2) Commercial power supply / वाणिज्यिक विद्युत आपूर्ति

(3) Expansion of urban grid / शहरी ग्रिड का विस्तार

(4) Access to all households / सभी घरों तक पहुँच ✔

Q.77 Which of the following acid–base indicators turns pink when added to a basic (alkaline) solution?

निम्नलिखित में से कौन-सा अम्ल-क्षार सूचक, क्षारीय विलयन में मिलाए जाने पर गुलाबी हो जाता है?

(1) Blue litmus / नीला लिटमस

(2) Methyl orange / मेथिल ऑरेंज

(3) Phenolphthalein / फिनॉल्फ्थेलिन ✔

(4) Red litmus / लाल लिटमस

Q.78 Under the Indian Constitution, administrative tribunals can be established for adjudication of matters relating to which of the following?

भारतीय संविधान के अंतर्गत, निम्नलिखित में से किससे संबंधित मामलों पर न्यायनिर्णयन के लिए प्रशासनिक अधिकरण स्थापित किए जा सकते हैं?

(1) Religious endowments and trusts / धार्मिक अक्षय निधि और ट्रस्ट

(2) Rights of private educational institutions / निजी शैक्षणिक संस्थानों के अधिकार

(3) Recruitment and conditions of service in public services and posts / लोक सेवाओं और पदों में भर्ती और सेवा शर्तों ✔

(4) Criminal trials and penal provisions in public interest / जनहित में आपराधिक विचारण और दंडात्मक प्रावधान

Q.79 Which of the following rivers originates outside of India and enters through the state of Arunachal Pradesh?

निम्नलिखित में से कौन-सी नदी भारत के बाहर से निकलती है और अरुणाचल प्रदेश राज्य से होकर प्रवेश करती है?

(1) Ganga / गंगा

(2) Godavari / गोदावरी

(3) Brahmaputra / ब्रह्मपुत्र ✔

(4) Indus / सिंधु

Q.80 The Right to travel to foreign countries is secured under which of the following articles of the Indian Constitution?

विदेश यात्रा का अधिकार भारतीय संविधान के निम्नलिखित में से किस अनुच्छेद के अंतर्गत सुरक्षित है?

(1) Article 19 / अनुच्छेद 19

(2) Article 21 / अनुच्छेद 21 ✔

(3) Article 14 / अनुच्छेद 14

(4) Article 20 / अनुच्छेद 20

Arithmetical and Numerical Ability

Q.81 6% of a number is what percentage of 10% of the same number?

किसी संख्या का 6%, उसी संख्या के 10% का कितना प्रतिशत है?

(1) 60% ✔

(2) 67%

(3) 37%

(4) 75%

Q.82 The value of $8^2 + \sqrt{(7^2)} - 6\sqrt{4} - 12 =$

$8^2 + \sqrt{(7^2)} - 6\sqrt{4} - 12$ का मान =

(1) 55

(2) 47 ✔

(3) 50

(4) 51

Q.83 Evaluate: (-18) + 10 ÷ 5 + 6

मान ज्ञात कीजिए: (-18) + 10 ÷ 5 + 6

(1) -12

(2) -10 ✔

(3) -9

(4) -8

Q.84 David has two grandsons, Rodney and Amit. 15 year old Rodney gets some money from David's wealth and 16 year old Amit gets the rest of the money. But Rodney and Amit will get the money only when they turn 24 years old. Till then, the money is in a bank getting interest at rate 4% compounded annually. When both turn 24, they receive the same amount. How much had David given Amit (in ₹) initially, if total money with David was ₹25500?

डेविड के दो पोते, रॉडनी और अमित हैं। 15 वर्षीय रॉडनी को डेविड की संपत्ति से कुछ धनराशि मिलती है और 16 वर्षीय अमित को शेष धनराशि मिलती है। लेकिन रॉडनी और अमित को धनराशि तभी मिलेगी जब वे 24 वर्ष के हो जाएंगे। तब तक धनराशि एक बैंक में 4% वार्षिक चक्रवृद्धि ब्याज की दर पर जमा रहती है। जब दोनों 24 वर्ष के हो जाते हैं, तो उन्हें समान राशि प्राप्त होती है। यदि डेविड के पास कुल धनराशि ₹25500 थी, तो डेविड ने प्रारंभ में अमित को कितनी धनराशि (₹ में) दी थी?

(1) 13000 ✔

(2) 12250

(3) 12500

(4) 13350

Q.85 In a school, the average score of 30 students in a math test is 75. A new student joins the class and scores 90 marks. What is the new overall average (rounded off to one decimal place) of the class?

एक विद्यालय में, एक गणित परीक्षा में 30 छात्रों का औसत अंक 75 है। एक नया छात्र कक्षा में शामिल होता है और 90 अंक प्राप्त करता है। कक्षा का नया समग्र औसत (दशमलव के एक स्थान तक पूर्णांकित) क्या है?

(1) 75.5 ✔

(2) 74.2

(3) 75.0

(4) 74.5

Q.86 Ramesh bought a wrist watch for ₹4,800 and sold it at a loss of 15%. Find his selling price.

रमेश ने एक कलाई घड़ी ₹4,800 में खरीदी और उसे 15% की हानि पर बेच दिया। उसका विक्रय मूल्य ज्ञात कीजिए।

(1) ₹4,100

(2) ₹4,080 ✔

(3) ₹4,190

(4) ₹4,200

Q.87 The fraction equivalent to 6.27272... is:

6.27272... के समतुल्य भिन्न है:

(1) 69/11 ✔

(2) 78/7

(3) 62/19

(4) 74/13

Q.88 The table below shows the expenditure of an institution (in lakh rupees) per annum over the given years.

Year | Item of Expenditure

Salary | Fuel and Transport | Incentives | Interest on Loans | Taxes

2015 | 15 | 21 | 2 | 25 | 15

2016 | 18 | 25 | 4 | 30 | 20

2017 | 22 | 32 | 8 | 40 | 32

2018 | 35 | 42 | 12 | 45 | 44

2019 | 42 | 55 | 15 | 50 | 52 Find the ratio of the expenditure of the institute on Fuel and Transport to that on Taxes during the year 2016.

नीचे दी गई तालिका दिए गए वर्षों में एक संस्थान के प्रति वर्ष व्यय (लाख रुपये में) को दर्शाती है।

वर्ष | व्यय की मद

वेतन | ईंधन और परिवहन | प्रोत्साहन | ऋणों पर ब्याज | कर

2015 | 15 | 21 | 2 | 25 | 15

2016 | 18 | 25 | 4 | 30 | 20

2017 | 22 | 32 | 8 | 40 | 32

2018 | 35 | 42 | 12 | 45 | 44

2019 | 42 | 55 | 15 | 50 | 52 वर्ष 2016 के दौरान ईंधन और परिवहन पर संस्थान के व्यय का करों पर व्यय से अनुपात ज्ञात कीजिए।

(1) 4 : 5

(2) 5 : 4 ✔

(3) 4 : 3

(4) 3 : 4

Q.89 Find the value of $22^{-6} \times 21^{-6} \times 9^{-6}$

$22^{-6} \times 21^{-6} \times 9^{-6}$ का मान ज्ञात कीजिए।

(1) $1/4108^6$

(2) $1/4147^6$

(3) $\mathbf{1/4158^6}$ **✔**

(4) $1/4149^6$

Q.90 The average of the first 145 odd natural numbers is:

प्रथम 145 विषम प्राकृत संख्याओं का औसत है:

(1) 144.5

(2) 145.5

(3) 146

(4) 145 ✔

Q.91 The product of two numbers is 75, and their LCM is 15. Find the HCF of the two numbers.

दो संख्याओं का गुणनफल 75 है, और उनका LCM 15 है। दोनों संख्याओं का HCF ज्ञात कीजिए।

(1) 5 ✔

(2) 10

(3) 1

(4) 15

Q.92 Atul has two grandsons, Baban and Rakesh. 14 year old Baban gets some money from Atul's wealth, and 15 year old Rakesh gets the rest of the money. But Baban and Rakesh will get the money only when they turn 23 years old. Till then, the money is in a bank getting interest at rate 10% compounded annually. When both turn 23, they receive the same amount. How much had Atul given Rakesh (in ₹) initially, if total money with Atul was ₹25200?

अतुल के दो पोते, बबन और राकेश हैं। 14 वर्षीय बबन को अतुल की संपत्ति से कुछ धनराशि मिलती है, और 15 वर्षीय राकेश को शेष धनराशि मिलती है। लेकिन बबन और राकेश को धनराशि तभी मिलेगी जब वे 23 वर्ष के हो जाएंगे। तब तक धनराशि एक बैंक में 10% वार्षिक चक्रवृद्धि ब्याज की दर पर जमा रहती है। जब दोनों 23 वर्ष के हो जाते हैं, तो उन्हें समान राशि प्राप्त होती है। यदि अतुल के पास कुल धनराशि ₹25200 थी, तो अतुल ने प्रारंभ में राकेश को कितनी धनराशि (₹ में) दी थी?

(1) 11750

(2) 13200 ✔

(3) 12000

(4) 13550

Q.93 The HCF and the LCM of two numbers are 21 and 294, respectively. If one of the numbers is 2/7 times of the other, what is the smaller number?

दो संख्याओं का महत्तम समापवर्तक (HCF) और लघुत्तम समापवर्त्य (LCM) क्रमशः 21 और 294 है। यदि एक संख्या दूसरी संख्या की 2/7 गुना है, तो छोटी संख्या क्या है?

(1) 73

(2) 35

(3) 42 ✔

(4) 86

Q.94 The number 726179 is divisible by which of the following?

संख्या 726179 निम्नलिखित में से किससे विभाज्य है?

(1) 29

(2) 20

(3) 23 ✔

(4) 28

Q.95 P sells an item to Q at 40% profit. Q sells the same item to R at 20% loss. If R paid ₹2296, find the price at which P purchased the item (in ₹).

P एक वस्तु को Q को 40% लाभ पर बेचता है। Q वही वस्तु R को 20% हानि पर बेचता है। यदि R ने ₹2296 का भुगतान किया, तो वह मूल्य (₹ में) ज्ञात कीजिए जिस पर P ने वस्तु खरीदी थी।

(1) 2050 ✔

(2) 2047

(3) 2051

(4) 2052

Q.96 The following line graph shows the number of tourists (in hundred) in two cities A and B in five different months in the year 2023. Study the graph and answer the below question.

What is the ratio between the total number of tourists in city A in February and May to that in city B in January and March?

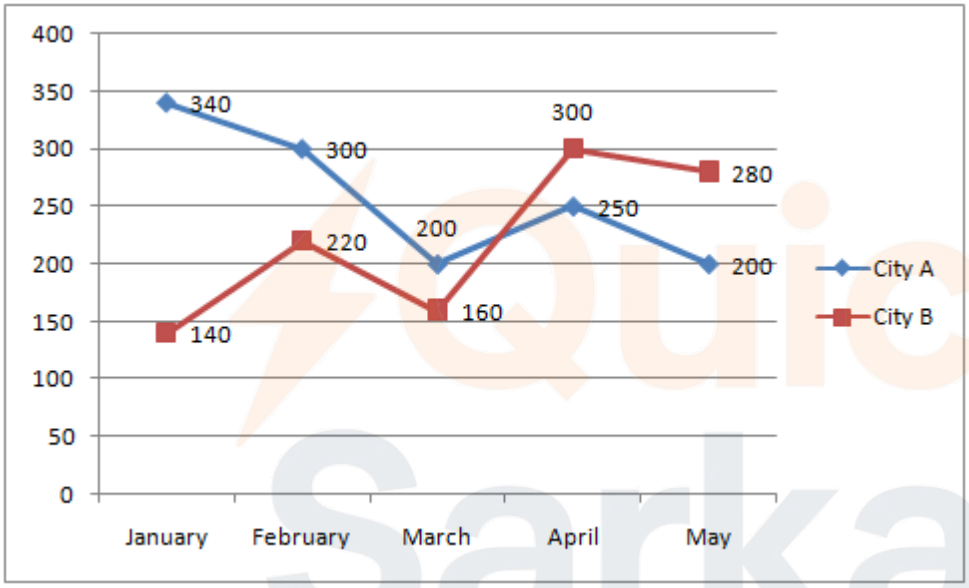

निम्नलिखित रेखा ग्राफ वर्ष 2023 में पांच अलग-अलग महीनों में दो शहरों A और B में पर्यटकों की संख्या (सौ में) को दर्शाता है। ग्राफ का अध्ययन करें और नीचे दिए गए प्रश्न का उत्तर दें।

फरवरी और मई में शहर A में पर्यटकों की कुल संख्या का, जनवरी और मार्च में शहर B में पर्यटकों की कुल संख्या से अनुपात क्या है?

(1) 2:3

(2) 3:4

(3) 5:3 ✔

(4) 6:1

Q.97 The prices of two tea containers T_1 and T_2 each with 1 kg powder are ₹360 and ₹450, respectively. If x kg T_1 and 4 kg T_2 are mixed and if cost of 1 kg mixture is ₹400, then find the value of x.

चाय के दो डिब्बों T_1 और T_2, जिनमें से प्रत्येक में 1 kg पाउडर है, के मूल्य क्रमशः ₹360 और ₹450 हैं। यदि x kg T_1 और 4 kg T_2 को मिलाया जाता है और 1 kg मिश्रण का मूल्य ₹400 है, तो x का मान ज्ञात कीजिए।

(1) 6

(2) 5.8

(3) 5 ✔

(4) 4.4

Q.98 At what rate of simple interest per annum will a sum of money become four times itself in 4 years?

कोई धनराशि किस वार्षिक साधारण ब्याज की दर से 4 वर्षों में स्वयं की चार गुनी हो जाएगी?

(1) 50%

(2) 125%

(3) 100%

(4) 75% ✔

Q.99 Income of Amit in 2019 was ₹24,300. He gets an increment of 10% every year. What was his income (in ₹) in 2021?

2019 में अमित की आय ₹24,300 थी। उसे प्रति वर्ष 10% की वेतन वृद्धि मिलती है। 2021 में उसकी आय (₹ में) कितनी थी?

(1) 29,160

(2) 26,300

(3) 29,403 ✔

(4) 26,730

Q.100 Which of the following numbers is divisible by 98?

निम्नलिखित में से कौन-सी संख्या 98 से विभाज्य है?

(1) 666099

(2) 664342 ✔

(3) 664612

(4) 665690

Q.101 The areas of three adjacent faces of a solid cuboid are 172 cm^2, 215 cm^2 and 20 cm^2. What is the volume (in cm^3) of the cuboid?

एक ठोस घनाभ के तीन आसन्न फलकों के क्षेत्रफल 172 cm^2, 215 cm^2 और 20 cm^2 हैं। घनाभ का आयतन (cm^3 में) क्या है?

(1) 860 ✔

(2) 1068

(3) 813

(4) 608

Q.102 The area (in cm^2) of an equilateral triangle of side 74 cm is:

74 cm भुजा वाले एक समबाहु त्रिभुज का क्षेत्रफल (cm^2 में) है:

(1) $1369\sqrt{3}$ ✔

(2) $1365\sqrt{3}$

(3) $1364\sqrt{3}$

(4) $1372\sqrt{3}$

Q.103 Two taps can fill a cistern in 16 hours and 15 hours respectively. A third tap can empty it in 17 hours. How long will it take to fill the empty cistern, if all of them are opened together?

दो नल एक टंकी को क्रमशः 16 घंटे और 15 घंटे में भर सकते हैं। एक तीसरा नल उसे 17 घंटे में खाली कर सकता है। यदि तीनों नलों को एक साथ खोल दिया जाए, तो खाली टंकी को भरने में कितना समय लगेगा?

(1) 21 62/287 hours / 21 62/287 घंटे

(2) 14 62/287 hours / 14 62/287 घंटे ✔

(3) 11 62/287 hours / 11 62/287 घंटे

(4) 18 62/287 hours / 18 62/287 घंटे

Q.104 A shopkeeper sells an item for ₹829.4 after giving two successive discounts of 89% and 42% on its marked price. Had he not given any discount, he would have earned a profit of 25%. What is the cost price (in ₹) of the item?

एक दुकानदार किसी वस्तु के अंकित मूल्य पर 89% और 42% की दो क्रमिक छूट देने के बाद उसे ₹829.4 में बेचता है। यदि उसने कोई छूट नहीं दी होती, तो उसे 25% का लाभ होता। वस्तु का क्रय मूल्य (₹ में) क्या है?

(1) 10,351

(2) 10,428

(3) **10,400** ✔

(4) 10,431

Q.105 The capacity of a cuboidal tank of water is 80,000 litres of water. Find the breadth of the tank if its length and depth are 2.5 m and 10 m, respectively.

एक घनाभाकार पानी की टंकी की धारिता 80,000 लीटर पानी है। यदि टंकी की लंबाई और गहराई क्रमशः 2.5 m और 10 m हैं, तो उसकी चौड़ाई ज्ञात कीजिए।

(1) 3 m

(2) **3.2 m** ✔

(3) 3.5 m

(4) 3.8 m

Q.106 Find the third proportional to $(x + y)$ and $(x^2 - y^2)$.

$(x + y)$ और $(x^2 - y^2)$ का तृतीयानुपाती ज्ञात कीजिए।

(1) $(x + y)^2$

(2) $\mathbf{(x + y)(x - y)^2}$ ✔

(3) $(x - y)^2$

(4) $(x^2 + y^2)^2$

Q.107 A, B and C entered into a partnership, with their investments in the ratio 54 : 53 : 158. After 8 months, A raises her amount of investment by 80%. If the total profit after 12 months from the beginning of the partnership is ₹33,52,800, how much does A receive as her share of profit?

A, B और C ने 54 : 53 : 158 के अनुपात में निवेश करके एक साझेदारी में प्रवेश किया। 8 महीने बाद, A अपनी निवेश राशि में 80% की वृद्धि करती है। यदि साझेदारी की शुरुआत से 12 महीने बाद कुल लाभ ₹33,52,800 है, तो A को लाभ में उसके हिस्से के रूप में कितनी राशि प्राप्त होगी?

(1) **₹8,20,800** ✔

(2) ₹8,02,800

(3) ₹8,40,800

(4) ₹8,22,800

QuickSarkari.com | WhatsApp Channel | Telegram: t.me/quick_sarkari

Q.108 The diameter of a sphere is 14 cm more than the diameter of a smaller sphere. The surface area of the larger sphere is 2816 cm^2 more than the surface area of the smaller sphere. What is the diameter (in cm) of the larger sphere?
(Use π = 22/7)

एक गोले का व्यास एक छोटे गोले के व्यास से 14 cm अधिक है। बड़े गोले का पृष्ठीय क्षेत्रफल छोटे गोले के पृष्ठीय क्षेत्रफल से 2816 cm^2 अधिक है। बड़े गोले का व्यास (cm में) क्या है?
(π = 22/7 का उपयोग कीजिए)

(1) 36
(2) 44
(3) 42
(4) **39** ✔

Q.109 Ajay and Sarang together have ₹1350. If ₹150 is taken from Ajay, he will be left with the same amount that Sarang originally had. Find the initial ratio of their amounts.

अजय और सारंग के पास कुल मिलाकर ₹1350 हैं। यदि अजय से ₹150 ले लिए जाएं, तो उसके पास उतनी ही राशि बचेगी जितनी सारंग के पास मूल रूप से थी। उनकी राशियों का प्रारंभिक अनुपात ज्ञात कीजिए।

(1) **5:4** ✔
(2) 7:6
(3) 6:5
(4) 4:3

Q.110 A retailer provides a 20% discount on the original price, followed by an additional 15% discount on the reduced amount. By how much does the total overall discount exceed the initial 20% discount on the original price?

एक खुदरा विक्रेता मूल मूल्य पर 20% की छूट देता है, उसके बाद घटी हुई राशि पर 15% की अतिरिक्त छूट देता है। कुल समग्र छूट, मूल मूल्य पर दी गई प्रारंभिक 20% छूट से कितनी अधिक है?

(1) 18%
(2) 16%
(3) **12%** ✔
(4) 14%

Q.111 Two trains, 150 m and 100 m long, are running in the same direction on parallel tracks at speeds of 60 km/h and 40 km/h. How much time (in seconds) will the faster train take to come from behind and completely cross the slower train?

150 m और 100 m लंबी दो ट्रेनें, समानांतर पटरियों पर एक ही दिशा में 60 km/h और 40 km/h की चाल से चल रही हैं। तेज ट्रेन को पीछे से आने और धीमी ट्रेन को पूरी तरह से पार करने में कितना समय (सेकंड में) लगेगा?

(1) 48
(2) 36
(3) 42
(4) **45** ✔

Q.112 The slant height of a right circular cone is 17 m, and its height is 15 m. The curved surface area (in m^2) of the cone is:

एक लंब वृत्तीय शंकु की तिर्यक ऊँचाई 17 m है, और इसकी ऊँचाई 15 m है। शंकु का वक्र पृष्ठीय क्षेत्रफल (m^2 में) है:

(1) 156π

(2) **136π ✔**

(3) 256π

(4) 134π

Q.113 A cylindrical water tank has a radius of 3 meters and a height of 7 meters. Find the volume of the cylinder.
(Use π = 22/7)

एक बेलनाकार पानी की टंकी की त्रिज्या 3 मीटर और ऊँचाई 7 मीटर है। बेलन का आयतन ज्ञात कीजिए।
(π = 22/7 का उपयोग कीजिए)

(1) 189 m^3

(2) **198 m^3 ✔**

(3) 220 m^3

(4) 200 m^3

Q.114 If 25 people working 10 hours a day can complete 2 units of work in 6 days, how many days will be required by 17 persons to complete 17 units of work working 10 hours a day?

यदि प्रतिदिन 10 घंटे काम करने वाले 25 व्यक्ति 6 दिनों में कार्य की 2 इकाइयाँ पूरी कर सकते हैं, तो प्रतिदिन 10 घंटे काम करते हुए 17 व्यक्तियों को कार्य की 17 इकाइयाँ पूरी करने में कितने दिन लगेंगे?

(1) **75 ✔**

(2) 70

(3) 60

(4) 85

Q.115 A right circular solid cylinder with base diameter 8 cm and height 22.5 cm is melted to form 8 equal solid spheres. If there is a 20% process loss during the formation, what is the diameter of each sphere?

आधार व्यास 8 cm और ऊँचाई 22.5 cm वाले एक लंब वृत्तीय ठोस बेलन को पिघलाकर 8 समान ठोस गोले बनाए जाते हैं। यदि निर्माण के दौरान 20% प्रक्रिया हानि होती है, तो प्रत्येक गोले का व्यास क्या है?

(1) **6 cm ✔**

(2) 7 cm

(3) 5 cm

(4) 4 cm

Q.116 Two numbers are in the ratio 8 : 3. If the first number is increased by 16 and the second number is decreased by 12, then the ratio becomes 6 : 2. What is the sum of the original two numbers?

दो संख्याएँ 8 : 3 के अनुपात में हैं। यदि पहली संख्या में 16 की वृद्धि की जाए और दूसरी संख्या में 12 की कमी की जाए, तो अनुपात 6 : 2 हो जाता है। मूल दोनों संख्याओं का योग क्या है?

(1) 590

(2) 575

(3) 554

(4) **572 ✔**

QuickSarkari.com | WhatsApp Channel | Telegram: t.me/quick_sarkari

Q.117 A train, 200 meters long, takes 18 seconds to pass a platform and 12 seconds to overtake a moving man walking at 6 km/h in the same direction. Now, the same train crosses another train of unknown length traveling in the opposite direction at 36 km/h. If the two trains cross each other completely in 9.6 seconds, find the length of the second train.

200 मीटर लंबी एक ट्रेन एक प्लेटफॉर्म को पार करने में 18 सेकंड लेती है और उसी दिशा में 6 km/h की चाल से चल रहे एक व्यक्ति से आगे निकलने में 12 सेकंड लेती है। अब, वही ट्रेन विपरीत दिशा में 36 km/h की चाल से चल रही अज्ञात लंबाई की एक अन्य ट्रेन को पार करती है। यदि दोनों ट्रेनें 9.6 सेकंड में एक-दूसरे को पूरी तरह से पार कर लेती हैं, तो दूसरी ट्रेन की लंबाई ज्ञात कीजिए।

(1) 78 meters / 78 मीटर

(2) 66 meters / 66 मीटर

(3) 72 meters / 72 मीटर ✔

(4) 60 meters / 60 मीटर

Q.118 If a conical water tank has a base diameter of 28 m and its height is 17 m more than the diameter, then find the volume of the water tank.

(Use π = 22/7)

यदि एक शंक्वाकार पानी की टंकी के आधार का व्यास 28 m है और इसकी ऊँचाई व्यास से 17 m अधिक है, तो पानी की टंकी का आयतन ज्ञात कीजिए।

(π = 22/7 का उपयोग कीजिए)

(1) 9240 m^3 ✔

(2) 18,480 m^3

(3) 4620 m^3

(4) 12,840 m^3

Q.119 A shopkeeper offers the following three schemes. Which scheme has the maximum discount percentage?

(i) Two successive discounts of 3% and 5%

(ii) Buy 4, get 2 free

(iii) Flat discount of 29%

एक दुकानदार निम्नलिखित तीन योजनाएँ प्रदान करता है। किस योजना में अधिकतम छूट प्रतिशत है?

(i) 3% और 5% की दो क्रमिक छूट

(ii) 4 खरीदें, 2 मुफ्त पाएं

(iii) 29% की सीधी छूट

(1) (ii) ✔

(2) (i)

(3) Both (ii) and (iii) are the same / (ii) और (iii) दोनों समान हैं

(4) (iii)

Q.120 A camp has enough food provisions for 50 persons to last 21 days. If the number of persons increases to 70, for how many days will the same provisions last?

एक शिविर में 50 व्यक्तियों के लिए 21 दिनों तक चलने के लिए पर्याप्त खाद्य सामग्री है। यदि व्यक्तियों की संख्या बढ़कर 70 हो जाती है, तो वही खाद्य सामग्री कितने दिनों तक चलेगी?

(1) 9

(2) 10

(3) 13

(4) 15 ✔

QuickSarkari.com | WhatsApp Channel | Telegram: t.me/quick_sarkari

English Language and Comprehension

Q.121 Select the most appropriate option with the correct order of adverbs to fill in the blank.
I have to run _____.

(1) quickly after lunch every Saturday to babysit for the young couple across the street
(2) **quickly across the street every Saturday after lunch to babysit for the young couple ✔**
(3) every Saturday across the street to babysit for the young couple quickly after lunch
(4) across the street every Saturday quickly after lunch to babysit for the young couple

---

Q.122 Select the most appropriate option to fill in the blank.
We must protect _____ environment.

(1) an
(2) **the ✔**
(3) No article
(4) a

Q.123 Identify the correct one- word substitution for the given idea/ definition.
A type of reasoning in which a general principle is applied to specific cases.

(1) **Deduction ✔**
(2) Abduction
(3) Syllogism
(4) Induction

Q.124 Choose the sentence that uses the correct past tense.

(1) The crowd had been cheering because the team had won.
(2) The crowd were cherred because the team was winning.
(3) The crowd cheer because the team had won.
(4) **The crowd cheered because the team won. ✔**

Q.125 Rearrange the following segments into a meaningful sentence.
A. discovery of a groundbreaking phenomenon
B. that challenged existing theories in the field
C. experiment, they were startled by the
D. while the researchers were conducting the

(1) **DCAB ✔**
(2) CDBA
(3) BADC
(4) ADCB

Q.126 Choose the word that has the same meaning as the given group of words.
Describing someone or something by showing their similarity with something else

(1) Irony
(2) Metaphor
(3) **Simile ✔**
(4) Oxymoron

Q.127 Choose the most appropriate option to fill in the blank below.
The protagonist's internal conflict _____ into moral paralysis, highlighting the novel's existential undertones.

(1) devolves ✔
(2) glides
(3) qualifies
(4) projects

Q.128 Fill in the blank with the most appropriate option.
He has been suffering _____ fever for the past three days.

(1) from ✔
(2) by
(3) on
(4) in

Q.129 The first segment of the sentence is fixed. Select the appropriate option to rearrange the other segments to form a coherent statement.
Fixed Segment: The more kinds of microbes
P: the better
Q: others perform their function
R: you have doing important functions
S: because if you lose one species

(1) RSQP
(2) PQRS
(3) RPSQ ✔
(4) QRSP

Q.130 Parts of a sentence are given below in jumbled order. Arrange the parts in the correct order to form a meaningful sentence.
1. shaping India's entertainment industry and gaining widespread recognition globally
2. action-packed thrillers to emotional dramas, while also playing a significant role in
3. encompass a variety of regional languages, offering diverse genres from
4. South Indian movies, known for their rich storytelling and strong cultural influences,

(1) 1-2-3-4
(2) 4-3-2-1 ✔
(3) 2-3-1-4
(4) 3-2-1-4

Q.131 Choose the correct option to complete the sentence.
The manager emphasized the importance of punctuality, reminding employees that meetings would begin promptly _____ 9 a.m.

(1) on
(2) at ✔
(3) in
(4) by

Q.132 Select the most suitable option to complete the given sentence.
A Cyclops was _____ one-eyed giant in Greek mythology.

(1) no article needed
(2) an
(3) **a ✔**
(4) the

Q.133 Select the word which means the same as the group of words given in the options .
Where lions live

(1) Stable
(2) **Lair ✔**
(3) Shed
(4) Kennel

Q.134 Rearrange the following segments to make a meaningful sentence.
P. addiction is a complex condition that can affect a person's physical health,
Q. leading individuals to repeatedly engage in harmful behaviors or substance use despite
R. knowing the negative consequences, making recovery
S. mental well-being, relationships, education, career, and overall quality of life, often T. a challenging process that requires determination, support, and appropriate treatment

(1) TQPSR
(2) TRSPQ
(3) **PSQRT ✔**
(4) PRTSQ

Q.135 Choose the one-word substitute for the given group of words.
A person who behaves without moral principles

(1) Polite
(2) Generous
(3) Honest
(4) **Immoral ✔**

Q.136 What is the overall tone of the passage?

(1) Critical and doubtful
(2) **Admiring and informative ✔**
(3) Humorous and playful
(4) Sad and emotional

Q.137 Which title best suits the passage?

(1) **The Amazing Journey of Honey ✔**
(2) The Secrets of Deep Oceans
(3) The Life of Forest Animals
(4) The Growth of Desert Plants

Q.138 Which option best summarizes the passage?

(1) Flowers' colours and growing conditions

(2) Honey's history, source, and varieties ✔

(3) Bees' enemies and daily struggles

(4) Ancient paintings and human cultures

Q.139 What does the word 'aroma' most nearly mean in the passage?

(1) Strong texture of something

(2) Pleasant smell of something ✔

(3) Natural shape of something

(4) Bright colour of something

Q.140 What can be inferred from the passage about honey?

(1) Different plants create different honey. ✔

(2) Bees prefer only sunflower nectar.

(3) Dark honey lacks useful minerals.

(4) Every flower produces identical honey.

Q.141 Choose the antonym of the underlined word in the sentence below.
The ancient temple attracts many tourists every year.

(1) historic

(2) sacred

(3) famous

(4) modern ✔

Q.142 Choose the most suitable option to substitute the segment “dog days” in the given sentence.
During the dog days of summer, most of the shops in the town close early due to the unbearable heat.

(1) days when dogs are adopted

(2) days with the most rainfall

(3) days of extreme heat and sluggishness ✔

(4) days when animals fall sick

Q.143 Identify the antonym of the word (apathetic) in the following sentence.
Though his peers remained indifferent to the issue and some were too disinterested to respond, she appeared genuinely concerned, often expressing her views with a tone far from passive.

(1) disinterested

(2) passive

(3) indifferent

(4) concerned ✔

Q.144 Select the INCORRECTLY spelt word.

(1) Disappear

(2) Committee

(3) Parallel

(4) Embarras ✔

QuickSarkari.com | WhatsApp Channel | Telegram: t.me/quick_sarkari

Q.145 Select the most appropriate option that can substitute the underlined segment in the given sentence. If there is no substitution required, select 'No substitution required'.
He did not know the answer so he gave a shot in the day.

(1) shot in the dark ✔
(2) No substitution required
(3) shot at sky
(4) shot at the target

Q.146 Select the most appropriate idiom to substitute the underlined group of words in the given sentence.
She decided to take a risk and pursue her dream career.

(1) steal someone's thunder
(2) beat around the bush
(3) throw caution to the wind ✔
(4) jump on the bandwagon

Q.147 Fill in the blank to complete the sentence in direct speech.
He said, "_____ going to the library tomorrow."

(1) I was
(2) I am ✔
(3) He was
(4) We have

Q.148 In the following sentence, one segment uses a literal expression. Choose the option that best replaces the underlined part with a suitable idiom.
Her manager always gave preference to his close friends, which caused resentment among the team.

(1) cut corners
(2) let the cat out of the bag
(3) played favourites ✔
(4) beat around the bush

Q.149 Select the sentence in passive voice for the following sentence.
The university had awarded him a scholarship before he applied.

(1) He was awarded a scholarship by the university before he had applied.
(2) A scholarship is awarded to him by the university before he applied.
(3) A scholarship had been awarded to him by the university before he applied. ✔
(4) A scholarship has been awarded to him by the university before he applied.

Q.150 Choose the correct direct speech to complete the sentence:
The coach instructed them to run two laps around the field then.
The coach said to them "_____".

(1) Run two laps around the field now ✔
(2) You must runs two laps around the field now
(3) You should runned two laps around the field now
(4) Running two laps around the field now

Q.151 Read the sentence carefully and choose the word from the options that is most opposite in meaning (antonym) to the underlined word.
The teacher selected a student at random to answer the question.

(1) Arbitrary
(2) Unpredictable
(3) Planned ✔
(4) Accidental

Q.152 Identify the sentence with the correct future tense.

(1) The train will be departing before we reach the station.
(2) The train will have been departing before we reach the station.
(3) The train will have departed before we reach the station. ✔
(4) The train will depart before we will reach the station.

Q.153 Choose the antonym of the underlined word in the sentence below.
The mandatory meeting will be held at noon.

(1) compulsory
(2) annual
(3) optional ✔
(4) scheduled

Q.154 Select the INCORRECTLY spelt word.

(1) Exhilarate
(2) Etheral ✔
(3) Gorgeous
(4) Millionaire

Q.155 Convert the following passive sentence into active voice.
Several breakthroughs in artificial intelligence have been made by scientists.

(1) Scientists had made several breakthroughs in artificial intelligence.
(2) Scientists are making several breakthroughs in artificial intelligence.
(3) Scientists make several breakthroughs in artificial intelligence.
(4) Scientists have made several breakthroughs in artificial intelligence. ✔

Q.156 Which of the following is the most appropriate title for the passage?

(1) The Impact of Government Policies on Global Food Production
(2) The History of Food and Farming Across Civilizations
(3) The Relationship Between Exercise and Physical Fitness
(4) The Role of Nutrition in Maintaining Health and Preventing Disease ✔

Q.157 What is the central theme of the passage?

(1) The history of dietary habits across different cultures
(2) The negative effects of poor government food policies
(3) The role of physical exercise in improving cognitive development
(4) The role of nutrition in maintaining health and preventing disease ✔

QuickSarkari.com | WhatsApp Channel | Telegram: t.me/quick_sarkari

Q.158 According to the passage, what can poor dietary habits lead to?

(1) Stronger immune systems and reduced risk of infections

(2) Improved energy levels and better cognitive functioning

(3) Obesity, diabetes, and cardiovascular diseases ✔

(4) Faster physical growth and improved mental clarity

Q.159 What does the word "deficiency" most nearly mean?

(1) Excess and abundance

(2) Growth and development

(3) Lack and shortage ✔

(4) Balance and stability

Q.160 Which of the following best summarizes the passage?

(1) Malnutrition only affects children and not adults or elderly people.

(2) Government campaigns alone improve dietary habits worldwide.

(3) Proper nutrition is essential as poor habits lead to serious diseases. ✔

(4) Nutrition only affects physical health and not mental well-being.

Hindi Language and Comprehension

Q.161 दिए गए विकल्प में से विशेषण के उचित भेद को चुन कर वाक्य पूर्ण करें - छात्र ने दूसरी पंक्ति में बैठकर प्रश्न हल किए। वाक्य में ..... विशेषण है।

(1) परिमाणवाचक

(2) गुणवाचक

(3) संख्यावाचक ✔

(4) सार्वनामिक

Q.162 निम्नलिखित वाक्य को उचित क्रम में लिखें-

1. दिन लक्ष्य
2. पा लूँगा
3. को अवश्य ही
4. एक-न-एक

(1) 2, 3, 1, 4

(2) 1, 2, 3, 4

(3) 4, 1, 3, 2 ✔

(4) 3, 4, 2, 1

Q.163 उपयुक्त 'कारक' चिह्न का चयन कर दिए गए वाक्य को पूर्ण कीजिए।

'नवनीत .....दरवाज़ा खोला।'

(1) को

(2) से

(3) ने ✔

(4) पर

Q.164 सही विशेषण का चयन कर रिक्त स्थान की पूर्ति करें।
'वह लड़का पढ़ने में काफ़ी_____है।'

(1) तपस्वी
(2) **तेज ✔**
(3) कठोर
(4) कठिन

Q.165 वाक्य विन्यास की दृष्टि से दिये गये वाक्य के शुद्ध रूप का चयन करें— हमारा देश भारत एकता अपनी अनेकता में के लिए विश्व भर में जाता है जाना।

(1) हमारा देश भारत अपनी अनेकता में एकता के लिए जाना जाता है विश्व भर में।
(2) अनेकता में एकता के लिए विश्व भर में जाना जाता है हमारा देश भारत अपनी।
(3) **हमारा देश भारत अपनी अनेकता में एकता के लिए विश्व भर में जाना जाता है। ✔**
(4) देश भारत हमारा अपनी अनेकता में एकता के लिए विश्व भर में जाना जाता है।

Q.166 नीचे एक वाक्य के खंडों को अव्यवस्थित क्रम में दिया गया है। उस विकल्प का चयन करिए जो वाक्य का सही क्रम बताता हो-
(a) के प्रत्येक कण में अपनी
(b) अद्भुत शक्तियों का विस्तार
(c) प्रकृति अनन्त है वह सृष्टि
(d) करती चली जाती हो

(1) a,b,d,c
(2) **c,a,b,d ✔**
(3) c,d,a,b
(4) b,c,a,d

Q.167 उपयुक्त 'क्रिया विशेषण' का चयन कर दिए गए वाक्य को पूर्ण कीजिए।
' .....अब मैं क्या करूँ ?'

(1) वहां
(2) **हाय ! ✔**
(3) जब
(4) तब

Q.168 व्याकरणिक संबंधों वाले .....ही .....कहलाते हैं' उपयुक्त युग्म-विकल्प का चयन करते हुए वाक्य को पूर्ण करें -

(1) संज्ञा-वर्ण
(2) **शब्द-पद ✔**
(3) वर्ण-शब्द
(4) शब्द-वर्ण

Q.169 सर्वोचित क्रिया विशेषण से दिए गए वाक्य का रिक्त स्थान पूर्ण करें— बच्चा मैदान में ..... चल रहा था, क्योंकि वह बहुत थक गया था।

(1) बहुत
(2) तेज़-तेज़
(3) **धीरे-धीरे ✔**
(4) इसलिए

Q.170 दिये गये वाक्यों में से कौन सा वाक्य शुद्ध है?

(1) कल मैं बाजार फल खरीदने गया के लिए था।

(2) फल खरीदने के लिए बाजार गया था कल मैं।

(3) मैं बाज़ार गया था कल फल खरीदने के लिए।

(4) मैं फल खरीदने के लिए कल बाजार गया था। ✔

Q.171 "जो पहले कभी न हुआ हो' वाक्यांश के लिए एक शब्द होगा--

(1) अभूतपूर्व ✔

(2) अपूरणीय

(3) असामान्य

(4) अविस्मरणीय

Q.172 कर्म कारक के प्रयोग से वाक्य को पूर्ण कीजिए।

लोगों ने चोर ..... मारा।

(1) की

(2) को ✔

(3) पर

(4) से

Q.173 निम्नलिखित वाक्यांश के लिए सार्थक शब्द का प्रयोग करें - 'कम या नपा-तुला खर्च करने वाला'

(1) मितभाषी

(2) मितव्ययी ✔

(3) प्रार्थी

(4) मतिमांद्य

Q.174 दिये गये विकल्पों में से सही विकल्प चुनकर वाक्य को सार्थक ढंग से पूरा करें- पिताजी ने रोटी .....।

(1) खा लिया

(2) खाया

(3) खायी ✔

(4) खाये

Q.175 'आज रागिनी ने स्कूल में गीत गाया।' इस वाक्य में_____वाच्य है।

(1) कर्तृवाच्य ✔

(2) अनाचारीवाच्य

(3) भाववाच्य

(4) कर्मवाच्य

Q.176 आधुनिक युग में पुस्तक पढ़ने की प्रवृत्ति को क्या कमजोर कर रहा है?

(1) शिक्षकों की प्रेरणा

(2) पुस्तकालयों का विस्तार

(3) डिजिटल मनोरंजन ✔

(4) साहित्यिक चर्चाएँ

QuickSarkari.com | WhatsApp Channel | Telegram: t.me/quick_sarkari

Q.177 पुस्तक संस्कृति के पुनर्जनन हेतु क्या आवश्यक है?

(1) संकीर्ण दृष्टिकोण

(2) डिजिटल मनोरंजन

(3) पुस्तकालयों का विस्तार ✔

(4) सोशल मीडिया का विस्तार

Q.178 पुस्तकें आदर्श नागरिक के निर्माण का कैसा साधन हैं?

(1) न्यूनतम साधन

(2) वैकल्पिक साधन

(3) सर्वोत्तम साधन ✔

(4) अनावश्यक साधन

Q.179 गद्यांश के अनुसार युवाओं में "सहानुभूति का अभाव" का मूल कारण क्या है?

(1) गहन चिंतन का हाशिए पर होना ✔

(2) कर्मयोग की प्रेरणा

(3) भावनात्मक परिपक्वता की प्राप्ति

(4) मूल्यों का जागरण

Q.180 गद्यांश में "ह्रास" शब्द का प्रयोग किसकी ओर संकेत करता है?

(1) पुस्तक संस्कृति के उत्थान की

(2) डिजिटल मनोरंजन के विकास की

(3) गहन चिंतन क्षमता के पतन की ✔

(4) मूल्य जागरण के विस्तार की

Q.181 निम्नलिखित विकल्पों में से तत्सम शब्द कौन-सा है ?

(1) उजाला

(2) उठाना

(3) उज्ज्वल ✔

(4) उल्लू

Q.182 'अमावस्या' का तद्भव रूप बताइए-

(1) अमानत

(2) अमात्य

(3) पूर्णिमा

(4) अमावस ✔

Q.183 निम्नलिखित वाक्यों में त्रुटि पहचानकर शुद्ध वाक्य का चयन करें-

(1) धार्मिक कार्य में श्रद्धावान व्यक्ति ही सफल होता है। ✔

(2) धार्मिक कार्य में श्रद्धवान व्यक्ति ही सफल होता है।

(3) धार्मिक कार्य में श्रद्धामान व्यक्ति ही सफल होता है।

(4) धार्मिक कार्य में श्राद्धावन व्यक्ति ही सफल होता है।

Q.184 अधोलिखित विकल्पों में उचित विकल्प का चयन कर वाक्य पूर्ण करें – किसान हल..... है।

(1) गा रहा

(2) नचा रहा

(3) चला रहा ✔

(4) जा रहा

Q.185 निम्नलिखित में से एक 'पतंग' का अनेकार्थी शब्द कौन सा नहीं है?

(1) नाव
(2) पक्षी
(3) सूर्य
(4) चुकता करना ✔

Q.186 'दूर के ढोल सुहावने' लोकोक्ति का क्या अर्थ है?

(1) दूर से वस्तुएँ अच्छी लगती है, लेकिन वास्तविकता निकट आने पर पता चलती है। ✔
(2) ढोल की आवाज़ दूर से आती है।
(3) मुश्किल समय में दूर की आवाज़े सहायता करती हैं।
(4) दूर से जो ढोल लाये जाते हैं उनकी आवाज़ बहुत मधुर होती है।

Q.187 'गुल खिलाना' मुहावरे का सही अर्थ है-

(1) युक्ति सफल होना
(2) कोई बखेड़ा खड़ा करना ✔
(3) गायब कर देना
(4) अपनी हानि करके मौज उड़ाना

Q.188 निम्नलिखित लोकोक्ति का सही अर्थ पहचानें।
आधा तीतर आधा बटेर

(1) अलग अलग राय देना
(2) आधा झूठ आधा सच
(3) कभी कुछ ठीक न करना
(4) जिनमें सामंजस्य का अभाव हो ✔

Q.189 कारक के आधार पर वाक्य पूर्ण कीजिए।
पर्यावरण की रक्षा करना हम सभी ____ कर्तव्य है।

(1) से
(2) के
(3) का ✔
(4) अरे

Q.190 'डंका बजना' मुहावरे का अर्थ है -

(1) ख्याति होना ✔
(2) अपयश होना
(3) बदनामी होना
(4) गुनाहगार होना

Q.191 'रस'- शब्द के अर्थों के सही विकल्प की पहचान कीजिए-

(1) स्वाद, आनंद ✔
(2) अंतरिक्ष, आनंद
(3) बादल, तत्त्व
(4) किनारा, प्रेम

QuickSarkari.com | WhatsApp Channel | Telegram: t.me/quick_sarkari

Q.192 निम्न लोकोक्ति का सही अर्थ चुनिए।
नौ दिन चले अढ़ाई कोस

(1) काम खराब कर देना
(2) बहुत धीमी गति से काम करना ✔
(3) तबीयत खराब होना
(4) बहुत धीमी गति से गाड़ी चलाना

Q.193 उचित क्रिया शब्दों से दिए गए वाक्य के रिक्त स्थानों को पूर्ण करें— विद्यालय से _____ वह थोड़ी देर आराम करेगा और शाम को _____ खेलेगा।

(1) आकर, जाकर ✔
(2) लौटकर, उठकर
(3) लौटकर, आकर
(4) जाकर, उठकर

Q.194 'ठस' का अर्थ है-

(1) ईश्वर
(2) तिनका
(3) आँख
(4) हठी ✔

Q.195 निम्नलिखित में से अनेकार्थी शब्द 'युक्ति' का अर्थ क्या है?

(1) तरकीब ✔
(2) मालिक
(3) रुकना
(4) कपूर

Q.196 उपर्युक्त गद्यांश हेतु उचित शीर्षक का चयन करें।

(1) भारत की ऐतिहासिक वास्तुकला
(2) योग एवं आयुर्वेद: आध्यात्मिक विरासत
(3) पर्यटन का आर्थिक एवं रोजगार पक्ष
(4) भारतीय पर्यटन: एक बहुआयामी परिदृश्य ✔

Q.197 उपर्युक्त गद्यांश का केंद्रीय विषय क्या है?

(1) भारत की भौगोलिक विविधता और प्राकृतिक संपदा का वर्णन
(2) विदेशी पर्यटकों द्वारा भारतीय अर्थव्यवस्था का निरंतर संवर्धन
(3) भारतीय पर्यटन की बहुआयामी प्रासंगिकता और सांस्कृतिक व्यापकता ✔
(4) ऐतिहासिक धरोहरों का संरक्षण एवं वास्तुशिल्पीय विकास

Q.198 गद्यांश के अनुसार, पर्यटन का भारत के आर्थिक एवं सामाजिक परिदृश्य पर क्या मुख्य प्रभाव पड़ता है?

(1) यह मुख्य रूप से नवीन वास्तुशिल्पीय धरोहरों के निर्माण में सहायक है।
(2) यह केवल विदेशी सैलानियों को आध्यात्मिक शांति प्रदान करता है।
(3) यह मात्र प्राचीन विधाओं के संरक्षण तक ही सीमित रहता है।
(4) यह अर्थव्यवस्था को सुदृढ़ कर बड़े पैमाने पर रोजगार सृजित करता है। ✔

QuickSarkari.com | WhatsApp Channel | Telegram: t.me/quick_sarkari

Q.199 गद्यांश में प्रयुक्त शब्द विविधता का पर्यायवाची बताइए।

(1) वैविध्य ✔

(2) संकीर्णता

(3) समानता

(4) एकरूपता

Q.200 गद्यांश में प्रयुक्त शब्द आकर्षित का विलोम शब्द बताइए।

(1) प्रभावित

(2) विकर्षित ✔

(3) सम्मोहित

(4) मुग्ध

Answer Key / उत्तर कुंजी

1 3	2 4	3 1	4 2	5 4	6 4	7 2	8 2	9 3	10 4	11 4	12 2	13 2	14 2	15 2
16 2	17 4	18 1	19 1	20 1	21 2	22 2	23 2	24 2	25 3	26 1	27 2	28 3	29 1	30 2
31 3	32 4	33 1	34 1	35 3	36 4	37 4	38 2	39 1	40 2	41 4	42 1	43 2	44 1	45 1
46 3	47 1	48 2	49 3	50 4	51 3	52 1	53 2	54 1	55 2	56 3	57 4	58 1	59 4	60 3
61 2	62 2	63 1	64 3	65 1	66 4	67 3	68 2	69 3	70 2	71 3	72 2	73 2	74 3	75 1
76 4	77 3	78 3	79 3	80 2	81 1	82 2	83 2	84 1	85 1	86 2	87 1	88 2	89 3	90 4
91 1	92 2	93 3	94 3	95 1	96 3	97 3	98 4	99 3	100 2	101 1	102 1	103 2	104 3	105 2
106 2	107 1	108 4	109 1	110 3	111 4	112 2	113 2	114 1	115 1	116 4	117 3	118 1	119 1	120 4
121 2	122 2	123 1	124 4	125 1	126 3	127 1	128 1	129 3	130 2	131 2	132 3	133 2	134 3	135 4
136 2	137 1	138 2	139 2	140 1	141 4	142 3	143 4	144 4	145 1	146 3	147 2	148 3	149 3	150 1
151 3	152 3	153 3	154 2	155 4	156 4	157 4	158 3	159 3	160 3	161 3	162 3	163 3	164 2	165 3
166 2	167 2	168 2	169 3	170 4	171 1	172 2	173 2	174 3	175 1	176 3	177 3	178 3	179 1	180 3
181 3	182 4	183 1	184 3	185 4	186 1	187 2	188 4	189 3	190 1	191 1	192 2	193 1	194 4	195 1
196 4	197 3	198 4	199 1	200 2										

Quick Sarkari

Thank you for studying with QuickSarkari!

Get the latest Sarkari Naukri notifications, admit cards, results, answer keys and free previous-year papers first - follow us on WhatsApp and Telegram.

Visit www.quicksarkari.com

Join our WhatsApp Channel

https://whatsapp.com/channel/0029VaxxbrREquiPoXTWM229

Join our Telegram Channel

https://t.me/quick_sarkari

Share this PDF with your friends preparing for DSSSB exams.