DSSSB PREVIOUS YEAR PAPER WITH ANSWER KEY

# DSSSB Forest Guard

**12 July 2026 · Shift 2**

डीएसएसएसबी वन रक्षक – 12 जुलाई 2026, शिफ्ट 2 का प्रश्न पत्र, उत्तर कुंजी सहित

| 200 | 120 min | 1 / −0.25 | EN + HI |
|---|---|---|---|
| Questions / प्रश्न | Duration / समय | Marks per Q / अंक | Language / भाषा |

Sections: General Intelligence and Reasoning Ability, General Awareness, Arithmetical and Numerical Ability, English Language and Comprehension, Hindi Language and Comprehension

## INSIDE THIS PDF / इस PDF में

**Question Paper in English + Hindi with Answer Key (correct option marked in green) + answer table** Page 2–43
प्रश्न पत्र अंग्रेज़ी + हिंदी में, उत्तर कुंजी सहित (सही विकल्प हरे रंग में) + उत्तर तालिका

## HOW TO USE THIS PAPER / इस पेपर का उपयोग कैसे करें

1. Attempt the paper first as a timed online mock test (link below).
   पहले नीचे दिए लिंक से इसे टाइमर के साथ ऑनलाइन मॉक टेस्ट के रूप में हल करें।
2. Check your score, section-wise analysis and solutions online.
   ऑनलाइन अपना स्कोर, खंड-वार विश्लेषण और हल देखें।
3. Use this PDF for revision. Correct answers are shown in green.
   दोहराने के लिए इस PDF का उपयोग करें। सही उत्तर हरे रंग में दिए गए हैं।

**Attempt this paper as a FREE online mock test**

इस पेपर को फ्री ऑनलाइन मॉक टेस्ट के रूप में हल करें – टाइमर, स्कोर और हल के साथ

https://quicksarkari.com/dsssb-forest-guard-12-july-2026-shift-2-mock-test/

All DSSSB Forest Guard papers and mock tests: **quicksarkari.com/dsssb-mock-test/#forest-guard**

Join WhatsApp Channel | Join Telegram Channel

# DSSSB Forest Guard – Question Paper (English + Hindi)

## DSSSB वन रक्षक – प्रश्न पत्र (अंग्रेज़ी + हिंदी)

Exam held on 12 July 2026, Shift 2 · 200 questions · correct answers marked ✔ in green
परीक्षा तिथि 12 जुलाई 2026, शिफ्ट 2 · 200 प्रश्न · सही उत्तर हरे रंग में ✔ से चिह्नित

> The official paper for this shift was in Hindi. The English version of each question is a translation prepared by QuickSarkari; the language-section questions are shown as asked.
> इस शिफ्ट का आधिकारिक प्रश्न पत्र हिंदी में था। प्रत्येक प्रश्न का अंग्रेज़ी संस्करण QuickSarkari द्वारा तैयार किया गया अनुवाद है; भाषा खंड के प्रश्न मूल रूप में दिए गए हैं।

## General Intelligence and Reasoning Ability

**Q.1** This question is based on the following words:
HIT CAT FOD PET In each of these words, each vowel is replaced by the letter immediately following it and each consonant is replaced by the letter immediately preceding it in the English alphabetical order. How many letter-groups thus formed will have no vowel?

यह प्रश्न निम्नलिखित शब्दों पर आधारित है:
HIT CAT FOD PET इनमें से प्रत्येक शब्द में, प्रत्येक स्वर को अंग्रेजी वर्णमाला के क्रम में उसके ठीक बाद वाले अक्षर से और प्रत्येक व्यंजन को अंग्रेजी वर्णमाला के क्रम में उसके ठीक पहले वाले अक्षर से बदल दिया जाता है। इस प्रकार निर्मित कितने अक्षर समूहों में कोई स्वर नहीं होगा?

**(1)** Four / चार
**(2)** **Two / दो ✔**
**(3)** One / एक
**(4)** Three / तीन

---

**Q.2** A @ B means 'A is the sister of B'
A & B means 'A is the wife of B'
A # B means 'A is the father of B'
If J @ K & L # M @ N, then how is J related to M?

A @ B का अर्थ है कि 'A, B की बहन है'
A & B का अर्थ है कि 'A, B की पत्नी है'
A # B का अर्थ है कि 'A, B का पिता है'
यदि J @ K & L # M @ N है, तो J का M से क्या संबंध है?

**(1)** **Mother's sister / माता की बहन ✔**
**(2)** Mother's mother / माता की माता
**(3)** Father's sister / पिता की बहन
**(4)** Sister / बहन

---

**Q.3** Seven people F, G, H, I, O, P and Q are sitting in a row, facing north.
Only F sits to the left of Q. Only four people sit between F and I. Only O sits between P and G, and P is not an immediate neighbour of I.
How many people sit between H and Q?
सात व्यक्ति F, G, H, I, O, P और Q एक पंक्ति में उत्तर दिशा की ओर अभिमुख होकर बैठे हैं।
Q के बाईं ओर केवल F बैठा है। F और I के बीच केवल चार व्यक्ति बैठे हैं। P और G के बीच केवल O बैठा है और P, I का निकटतम पड़ोसी नहीं है।
H और Q के बीच कितने व्यक्ति बैठे हैं?

**(1)** One / एक
**(2)** Two / दो
**(3)** Three / तीन
**(4) Four / चार ✔**

---

**Q.4** Select the pair that follows the same pattern as that followed by the pairs given below. Both pairs follow the same pattern.
GJX : IFU LQO : NML
उस युग्म का चयन कीजिए जो नीचे दिए गए युग्मों के समान पैटर्न का अनुसरण करता है। दोनों युग्म समान पैटर्न का अनुसरण करते हैं।
GJX : IFU LQO : NML

**(1)** LKL : NGJ
**(2)** WKW : YGU
**(3)** MPU : OLQ
**(4) UUV : WQS ✔**

---

**Q.5** In a certain code language, 'LOPE' is coded as '4718' and 'CLOP' is coded as '2187'. What is the code for 'C' in the given code language?
एक निश्चित कूट भाषा में, 'LOPE' को '4718' के रूप में कूटबद्ध किया जाता है और 'CLOP' को '2187' के रूप में कूटबद्ध किया जाता है। दी गई कूट भाषा में 'C' के लिए कूट क्या है?

**(1)** 1
**(2)** 8
**(3) 2 ✔**
**(4)** 7

---

**Q.6** Each letter in the word FAREDIC is replaced by the letter immediately following it in the English alphabetical order, and then all the letters thus formed are arranged in English alphabetical order. Which of the following will be the fourth letter from the right in the new group of letters thus formed?
शब्द FAREDIC के प्रत्येक अक्षर को अंग्रेजी वर्णमाला क्रम में उसके ठीक बाद वाले अक्षर से बदल दिया जाता है और फिर इस प्रकार बने सभी अक्षरों को अंग्रेजी वर्णमाला क्रम में व्यवस्थित किया जाता है। इस प्रकार बने अक्षरों के नए समूह में दाईं ओर से चौथा अक्षर निम्नलिखित में से कौन-सा होगा?

**(1)** J
**(2)** E
**(3)** G
**(4) F ✔**

---

**Q.7** In a row of 221 students facing north, Mr. Jim is at the 51st position from the left end. If Mr. Lai is 17th to the right of Mr. Jim, what is the position of Mr. Lai from the right end of the row?

उत्तर दिशा की ओर मुख किए हुए 221 विद्यार्थियों की एक पंक्ति में, मि. जिम, बाएं छोर से 51वें स्थान पर हैं। यदि मि. लाई, मि. जिम के दाईं ओर 17वें स्थान पर हैं, तो पंक्ति के दाएं छोर से मि. लाई का स्थान क्या है?

**(1)** 152nd / 152वां

**(2)** 155th / 155वां

**(3)** 153rd / 153वां

**(4)** **154th / 154वां ✔**

---

**Q.8** Five candidates F, G, H, J and K are sitting in a straight row facing north for an interview, but not necessarily in the same order. If G is not at any end and sits exactly between F and J, then select the possible seating order.

पांच उम्मीदवार F, G, H, J, और K, एक साक्षात्कार के लिए उत्तर की ओर अभिमुख होकर एक सीधी पंक्ति में बैठे हैं, परंतु उनका इसी क्रम में होना आवश्यक नहीं है। यदि G किसी छोर पर नहीं है तथा F और J के ठीक बीच में बैठा है, तो बैठने के संभावित क्रम का चयन कीजिए।

**(1)** **K F G J H ✔**

**(2)** H G F J K

**(3)** K G F J H

**(4)** F G K J H

---

**Q.9** Each vowel in the word ABLATED is replaced by the letter immediately following it in the English alphabetical order, and each consonant is replaced by the letter immediately preceding it in the English alphabetical order. How many letters will appear exactly twice in the letter-group thus formed?

शब्द ABLATED के प्रत्येक स्वर को अंग्रेजी वर्णमाला क्रम में उसके ठीक बाद आने वाले अक्षर से बदल दिया जाता है और प्रत्येक व्यंजन को अंग्रेजी वर्णमाला क्रम में उससे ठीक पहले आने वाले अक्षर से बदल दिया जाता है। इस प्रकार बने अक्षर-समूह में कितने अक्षर ठीक दो बार आएंगे?

**(1)** Three / तीन

**(2)** Two / दो

**(3)** **One / एक ✔**

**(4)** None / एक भी नहीं

---

**Q.10** YBCF is related to HKLO in a certain way based on the English alphabetical order. In the same way, MPQT is related to VYZC. Following the same logic, ILMP is related to which of the following?

अंग्रेजी वर्णमाला क्रम के आधार पर एक निश्चित तरीके से YBCF का संबंध HKLO से है। उसी प्रकार, MPQT का संबंध VYZC से है। समान तर्क का अनुसरण करते हुए, ILMP का संबंध निम्नलिखित में से किससे है?

**(1)** **RUVY ✔**

**(2)** RVUY

**(3)** RUUY

**(4)** RTUY

---

QuickSarkari.com | WhatsApp Channel | Telegram: t.me/quick_sarkari

**Q.11** Seven people D, E, L, M, N, O and Q are sitting in a straight row, facing north. Only two people sit to the right of M. Only two people sit between M and N. Only two people sit between E and L. L sits to the immediate left of M. D sits to the immediate right of Q. Who sits third from the left end of the row?

सात व्यक्ति D, E, L, M, N, O और Q एक सीधी पंक्ति में उत्तर की ओर अभिमुख होकर बैठे हैं। M के दाएं केवल दो व्यक्ति बैठे हैं। M और N के बीच केवल दो व्यक्ति बैठे हैं। E और L के बीच केवल दो व्यक्ति बैठे हैं। L, M के ठीक बाएं पड़ोस में बैठा है। D, Q के ठीक दाएं पड़ोस में बैठा है। पंक्ति के बाएं छोर से तीसरे स्थान पर कौन बैठा है?

**(1)** N
**(2) O ✔**
**(3)** Q
**(4)** L

---

**Q.12** All 112 people are standing in a row, facing north. Teeka is 34th from the left end, while Maan is 9th from the right end. How many people are there between Teeka and Maan?

सभी 112 व्यक्ति उत्तर दिशा की ओर अभिमुख होकर एक पंक्ति में खड़े हैं। टीका बाएं छोर से 34वें स्थान पर है जबकि मैन दाएं छोर से 9वें स्थान पर है। टीका और मान के बीच कितने व्यक्ति हैं?

**(1)** 67
**(2)** 64
**(3) 69 ✔**
**(4)** 65

---

**Q.13** In a code language, 'TIME' is coded as 'VJOF' and 'DATE' is coded as 'FBVF'. How will 'RACE' be coded in the same language?

एक कूट भाषा में, 'TIME' को 'VJOF' के रूप में तथा 'DATE' को 'FBVF' के रूप में कूटबद्ध किया जाता है। उसी भाषा में 'RACE' को कैसे कूटबद्ध किया जाएगा?

**(1)** BEFT
**(2)** FEBT
**(3) TBEF ✔**
**(4)** TEBF

---

**Q.14** GJ 4 is related to IF-12 in a certain way. In the same way, IO 11 is related to KK -5. Following the same logic, QK 19 is related to which of the following?

एक निश्चित प्रकार से GJ 4 का संबंध IF-12 से है। उसी प्रकार, IO 11 का संबंध KK -5 से है। समान तर्क का अनुसरण करते हुए QK 19 का संबंध निम्नलिखित में से किससे है?

**(1)** KJ 7
**(2) SG 3 ✔**
**(3)** PO 9
**(4)** JH 6

---

QuickSarkari.com | WhatsApp Channel | Telegram: t.me/quick_sarkari

**Q.15** Ishika, Kamal, Mona, Nida, Prakhar, Rubika and Shishu live on seven different floors of the same building. The lowermost floor of the building is numbered 1, the floor above it is numbered 2, and so on till the topmost floor, which is numbered 7. Shishu lives immediately above Rubika, and Rubika lives immediately above Kamal. Kamal lives on floor number 1. Only two people live between Shishu and Mona. Prakhar lives immediately above Nida. On which floor number does Nida live?

इशिका, कमल, मोना, निदा, प्रखर, रुबिका और शिशु एक ही इमारत के सात अलग-अलग तलों पर रहते हैं। इमारत के सबसे निचले तल का क्रमांक 1 है, उसके ऊपर वाले तल का क्रमांक 2 है और इसी प्रकार, सबसे ऊपर वाले तल का क्रमांक 7 है। शिशु, रुबिका के ठीक ऊपर रहता है और रुबिका, कमल के ठीक ऊपर रहती है। कमल तल क्रमांक 1 पर रहता है। शिशु और मोना के बीच केवल दो व्यक्ति रहते हैं। प्रखर, निदा के ठीक ऊपर रहता है। निदा किस तल क्रमांक पर रहती है?

**(1)** Floor number 2 / तल क्रमांक 2

**(2)** Floor number 5 / तल क्रमांक 5

**(3)** Floor number 3 / तल क्रमांक 3

**(4)** **Floor number 4 / तल क्रमांक 4 ✔**

---

**Q.16** Each letter in the word AEDILES is replaced by the letter immediately following it in the English alphabetical order, and then all the letters thus formed are arranged in alphabetical order. Which of the following letters will be fourth from the right in the new letter-group thus formed?

AEDILES शब्द के प्रत्येक अक्षर को अंग्रेजी वर्णमाला क्रम में उसके ठीक बाद वाले अक्षर से बदल दिया जाता है और फिर इस प्रकार बने सभी अक्षरों को वर्णमाला क्रम में व्यवस्थित किया जाता है। इस प्रकार बने नए अक्षर-समूह में निम्नलिखित में से कौन-सा अक्षर दाईं ओर से चौथा होगा?

**(1)** E

**(2)** **F ✔**

**(3)** M

**(4)** J

---

**Q.17** In a certain code language, 'PLANE' is coded as LPAEN and 'TRAIN' is coded as RTAIN. How will 'CRANE' be coded in the same language?

किसी कूट भाषा में, 'PLANE' को LPAEN के रूप में कूटबद्ध किया जाता है और 'TRAIN' को RTAIN के रूप में कूटबद्ध किया जाता है। उसी भाषा में 'CRANE' को किस प्रकार कूटबद्ध किया जाएगा?

**(1)** ARCNE

**(2)** NCARE

**(3)** **RCAEN ✔**

**(4)** CARNE

---

**Q.18** Six people, S, T, V, W, X and Y, live on six different floors of a building, where the lowermost floor is numbered 1 and the topmost floor is numbered 6. T lives on the topmost floor. Only three people live between T and Y. S lives on the floor below Y. X lives on an even-numbered floor. V lives on an odd-numbered floor but not on the fifth floor. How many people live between W and Y?

छह व्यक्ति, S, T, V, W, X और Y, एक इमारत के छह विभिन्न तलों पर रहते हैं, जहां सबसे निचले तल का क्रमांक 1 और सबसे ऊपरी तल का क्रमांक 6 हैं। T सबसे ऊपरी तल पर रहता है। T और Y के बीच केवल तीन व्यक्ति रहते हैं। S, Y से नीचे वाले तल पर रहता है। X सम क्रमांक वाले तल पर रहता है। V विषम क्रमांक वाले तल पर रहता है लेकिन पांचवें तल पर नहीं रहता है। W और Y के बीच कितने व्यक्ति रहते हैं?

**(1)** One / एक

**(2)** Three / तीन

**(3)** None / एक भी नहीं

**(4)** **Two / दो ✔**

---

**Q.19** If each letter of the word MARINE is arranged in alphabetical order, the positions of how many letters will remain unchanged?

यदि MARINE शब्द के प्रत्येक अक्षर को वर्णानुक्रम में व्यवस्थित किया जाए, तो कितने अक्षरों की स्थिति अपरिवर्तित रहेगी?

**(1)** Three / तीन

**(2)** Four / चार

**(3)** Two / दो

**(4) One / एक ✔**

---

**Q.20** Refer to the following series and answer the question. (Counting is to be done from left to right only.) (All numbers are single-digit numbers only.)

(Left) 5 2 4 7 8 6 9 5 2 2 4 2 1 5 3 1 7 3 4 9 5 7 3 7 5 4 (Right)

How many odd digits are there, each of which is immediately preceded by an odd digit and immediately followed by an even digit?

निम्नलिखित शृंखला का संदर्भ लीजिए और प्रश्न का उत्तर दीजिए। (गिनती केवल बाएं से दाएं की जानी है।) (सभी संख्याएं केवल एकल-अंकीय संख्याएं हैं।)

(बाएं) 5 2 4 7 8 6 9 5 2 2 4 2 1 5 3 1 7 3 4 9 5 7 3 7 5 4 (दाएं)

ऐसे कितने विषम अंक हैं, जिनमें से प्रत्येक के ठीक पहले एक विषम अंक है और ठीक बाद में एक सम अंक है?

**(1)** 4

**(2) 3 ✔**

**(3)** 1

**(4)** 2

---

**Q.21** Two sets of numbers are given below. In each set of numbers, certain mathematical operation(s) on the first number result(s) in the second number. Similarly, certain mathematical operation(s) on the second number result(s) in the third number, and so on. Which of the given options follows the same set of operations as in the given sets?

(NOTE: Operations should be performed on the whole numbers, without breaking down the numbers into their constituent digits. E.g. 13 – Operations on 13 such as adding/subtracting/multiplying etc. to 13 can be performed. Breaking down 13 into 1 and 3 and then performing mathematical operations on 1 and 3 is not allowed.)

9 - 11 - 13 - 15 ; 4 - 6 - 8 - 10

नीचे संख्याओं के दो समुच्चय दिए गए हैं। संख्याओं के प्रत्येक समुच्चय में, पहली संख्या पर कुछ गणितीय संक्रियाएँ करके दूसरी संख्या प्राप्त की गई है। इसी प्रकार, दूसरी संख्या पर कुछ गणितीय संक्रियाएँ करके तीसरी संख्या प्राप्त की गई है और इसी प्रकार आगे भी संख्याएँ प्राप्त की गई हैं। दिए गए विकल्पों में से कौन-सा विकल्प, दिए गए समुच्चयों में अनुसरण की गई संक्रियाओं के समान संक्रियाओं का अनुसरण करता है?

(नोट: संख्याओं को उनके घटक अंकों में तोड़े बिना, पूर्ण संख्याओं पर संक्रियाएँ की जानी चाहिए। उदाहरण के लिए 13 को लीजिए - 13 पर संक्रियाएँ जैसे कि 13 में जोड़ना/घटाना/गुणा करना आदि 13 पर की जा सकती हैं। 13 को 1 व 3 में तोड़ना और फिर 1 व 3 पर गणितीय संक्रियाएँ करने की अनुमति नहीं है।)

9 - 11 - 13 - 15 ; 4 - 6 - 8 - 10

**(1)** 13 - 15 - 17 - 18

**(2) 6 - 8 - 10 - 12 ✔**

**(3)** 10 - 13 - 15 - 17

**(4)** 32 - 30 - 34 - 36

---

**Q.22** Three of the following four letter-clusters are alike in a certain way based on the English alphabetical order and thus form a group. Which letter-cluster does NOT belong to that group?
(Note: The odd letter-cluster is not based on the number of consonants/vowels or their position in the letter-cluster.)
अंग्रेजी वर्णमाला क्रम के आधार पर, निम्नलिखित चार अक्षर-समूहों में से तीन एक निश्चित तरीके से एकसमान हैं और इस प्रकार वे एक ग्रुप बनाते हैं। कौन-सा अक्षर-समूह उस ग्रुप से संबंधित नहीं है?
(नोट: असंगत अक्षर-समूह, उसमें व्यंजनों/स्वरों की संख्या या उनकी स्थिति पर आधारित नहीं है।)

**(1)** WSMJ
**(2)** **FBWZ ✔**
**(3)** OKEB
**(4)** IEYV

---

**Q.23** Following a certain logic, 7 is related to 36. Following the same logic, 4 is related to 21. Following the same logic, which of the given options is related to 15?
(NOTE: Operations should be performed on the whole numbers, without breaking down the numbers into their constituent digits. E.g. 13 – Operations on 13 such as adding/subtracting/multiplying etc. to 13 can be performed. Breaking down 13 into 1 and 3 and then performing mathematical operations on 1 and 3 is not allowed.)
एक निश्चित तर्क का अनुसरण करते हुए, 7 का संबंध 36 से है। उसी तर्क का अनुसरण करते हुए, 4 का संबंध 21 से है। समान तर्क का अनुसरण करते हुए, दिए गए विकल्पों में से किसका संबंध 15 से है?
(नोट: संख्याओं को उनके घटक अंकों में तोड़े बिना संक्रियाएँ केवल पूर्ण संख्याओं पर की जानी चाहिए। उदाहरण के लिए, 13 लीजिए - 13 पर संक्रियाएँ, जैसे 13 में जोड़ना/घटाना/गुणा करना, की जा सकती हैं। 13 को 1 और 3 में तोड़ना तथा फिर 1 और 3 पर गणितीय संक्रियाएँ करने की अनुमति नहीं है।)

**(1)** 66
**(2)** 81
**(3)** 86
**(4)** **76 ✔**

---

**Q.24** Which of the following letter-clusters will replace the question mark (?) to logically complete the given series?
GCB YUT QML IED ?
निम्नलिखित में से कौन-सा अक्षर समूह, दी गई श्रृंखला को तार्किक रूप से पूर्ण बनाने के लिए प्रश्न-चिन्ह (?) के स्थान पर आएगा?
GCB YUT QML IED ?

**(1)** AXU
**(2)** AVU
**(3)** ABD
**(4)** **AWV ✔**

---

**Q.25** If '+' and '–' are interchanged and '×' and '÷' are interchanged, then what will come in place of the question mark (?) in the following equation?
14 × 14 + 23 ÷ 1 − 35 = ?
यदि '+' और '–' को आपस में बदल दिया जाए तथा '×' और '÷' को आपस में बदल दिया जाए, तो निम्नलिखित समीकरण में प्रश्न-चिह्न (?) के स्थान पर क्या आएगा?
14 × 14 + 23 ÷ 1 − 35 = ?

**(1)** 15
**(2)** 11
**(3)** 14
**(4)** **13** ✔

---

**Q.26** If '+' means '–', '–' means '×', '×' means '÷' and '÷' means '+', then what will come in place of the question mark (?) in the following equation?
8 − 28 + 10 ÷ 24 × 3 = ?
यदि '+' का अर्थ '–' है, '–' का अर्थ '×' है, '×' का अर्थ '÷' है, '÷' का अर्थ '+' है, तो निम्नलिखित समीकरण में प्रश्न-चिह्न (?) के स्थान पर क्या आएगा?
8 − 28 + 10 ÷ 24 × 3 = ?

**(1)** 180
**(2)** **222** ✔
**(3)** 232
**(4)** 202

---

**Q.27** What should come in place of the question mark (?) in the given series?
17, 28, 39, 50, 61, ?
दी गई श्रृंखला में प्रश्न-चिह्न (?) के स्थान पर क्या आना चाहिए?
17, 28, 39, 50, 61, ?

**(1)** 73
**(2)** 74
**(3)** 71
**(4)** **72** ✔

---

**Q.28** What will come in place of '?' in the following equation if '+' and '-' are interchanged and '×' and '÷' are interchanged?
4 ÷ 6 + 9 × 3 - 2 = ?
निम्नलिखित समीकरण में '+' और '-' को आपस में बदल देने पर तथा '×' और '÷' को आपस में बदल देने पर '?' के स्थान पर क्या आएगा?
4 ÷ 6 + 9 × 3 - 2 = ?

**(1)** 11
**(2)** 29
**(3)** 17
**(4)** **23** ✔

---

QuickSarkari.com | WhatsApp Channel | Telegram: t.me/quick_sarkari

**Q.29** Following a certain logic, 5 is related to 45. Following the same logic, 7 is related to 61. Following the same logic, 4 is related to which of the following?
(NOTE: Operations should be performed on the whole numbers, without breaking down the numbers into their constituent digits. E.g. 13 – Operations on 13 such as adding/subtracting/multiplying etc. to 13 can be performed. Breaking down 13 into 1 and 3 and then performing mathematical operations on 1 and 3 is not allowed.)

एक निश्चित तर्क का अनुसरण करते हुए, 5 का संबंध 45 से है। उसी तर्क का अनुसरण करते हुए, 7 का संबंध 61 से है। समान तर्क का अनुसरण करते हुए, 4 का संबंध निम्नलिखित में से किससे है?
(नोट: संख्याओं को उनके घटक अंकों में तोड़े बिना संक्रियाएँ केवल पूर्ण संख्याओं पर की जानी चाहिए। उदाहरण के लिए, 13 लीजिए - 13 पर संक्रियाएं, जैसे 13 में जोड़ना/घटाना/गुणा करना, की जा सकती हैं। 13 को 1 और 3 में तोड़ना और फिर 1 और 3 पर गणितीय संक्रियाएं करने की अनुमति नहीं है।)

**(1)** 100
**(2)** 44
**(3)** **37** ✔
**(4)** 31

---

**Q.30** If '+' and '-' are interchanged and 'x' and '÷' are interchanged, then what will come in place of '?' in the following equation?
33 × 11 ÷ 14 - 15 + 28 = ?

यदि '+' और '-' को आपस में बदल दिया जाए तथा 'x' और '÷' को आपस में बदल दिया जाए, तो निम्नलिखित समीकरण में '?' के स्थान पर क्या आएगा?
33 × 11 ÷ 14 - 15 + 28 = ?

**(1)** **29** ✔
**(2)** 31
**(3)** 30
**(4)** 27

---

**Q.31** Which of the following letter-number clusters will replace the question mark (?) to logically complete the given series?
WAX 43 ZDA 32 CGD 21 FJG 10 ?

दी गई श्रृंखला को तार्किक रूप से पूर्ण बनाने के लिए, निम्नलिखित में से कौन-सा अक्षर-संख्या समूह प्रश्न-चिह्न (?) के स्थान पर आएगा?
WAX 43 ZDA 32 CGD 21 FJG 10 ?

**(1)** IMR -2
**(2)** **IMJ -1** ✔
**(3)** INI -1
**(4)** ILI -2

---

QuickSarkari.com | WhatsApp Channel | Telegram: t.me/quick_sarkari

**Q.32** Select the option in which the given figure (X) is embedded as its part (rotation is NOT allowed).

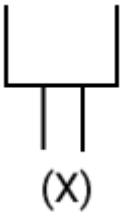

(X)

उस विकल्प का चयन करें जिसमें दी गई आकृति (X), उसके भाग के रूप में अंतर्निहित है (घूमाने की अनुमति नहीं है)।

**(1)** 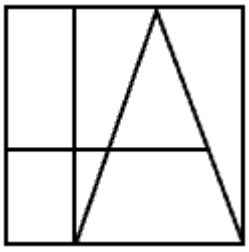

**(2)** 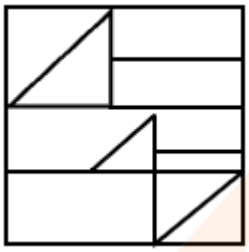

**(3)** 

**(4)** 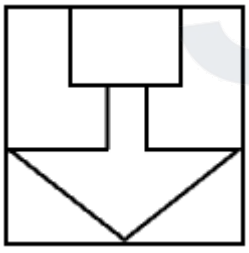

✔

**Q.33** What should come in place of '?' in the given series?

15 50 80 180 340 ?

दी गई श्रृंखला में '?' के स्थान पर क्या आना चाहिए?

15 50 80 180 340 ?

**(1) 700** ✔

**(2)** 710

**(3)** 690

**(4)** 680

QuickSarkari.com | WhatsApp Channel | Telegram: t.me/quick_sarkari

**Q.34** What should come in place of ? in the given series?
39 40 44 45 49 ?
दी गई श्रृंखला में ? के स्थान पर क्या आना चाहिए?
39 40 44 45 49 ?

**(1)** 49
**(2)** 51
**(3)** 52
**(4) 50 ✔**

---

**Q.35** Select the set in which the numbers are related in the same way as are the numbers of the following sets.
(NOTE: Operations should be performed on the whole numbers, without breaking down the numbers into their constituent digits. E.g. 13 – Operations on 13 such as adding / subtracting / multiplying etc. to 13 can be performed. Breaking down 13 into 1 and 3 and then performing mathematical operations on 1 and 3 is not allowed.)
8 - 3 - 24 5 - 8 - 40
उस सेट का चयन कीजिए जिसमें संख्याएं उसी प्रकार संबंधित हैं जिस प्रकार निम्नलिखित सेटों की संख्याएं संबंधित हैं।
(नोट: संख्याओं को उनके घटक अंकों में तोड़े बिना संक्रियाएं पूर्ण संख्याओं पर की जानी चाहिए। उदाहरण के लिए 13 लीजिए – 13 पर संक्रियाएं जैसे कि 13 में जोड़ना / घटाना / गुणा करना आदि, केवल 13 पर की जा सकती हैं। 13 को 1 और 3 में तोड़ना तथा फिर 1 और 3 पर गणितीय संक्रियाएं करने की अनुमति नहीं है।)
8 - 3 - 24 5 - 8 - 40

**(1)** 2 - 9 - 15
**(2) 4 - 9 - 36 ✔**
**(3)** 4 - 8 - 43
**(4)** 14 - 6 - 34

---

Quick Sarkari

**Q.36** Identify the figure from among the given options that can replace the ? and logically complete the series.

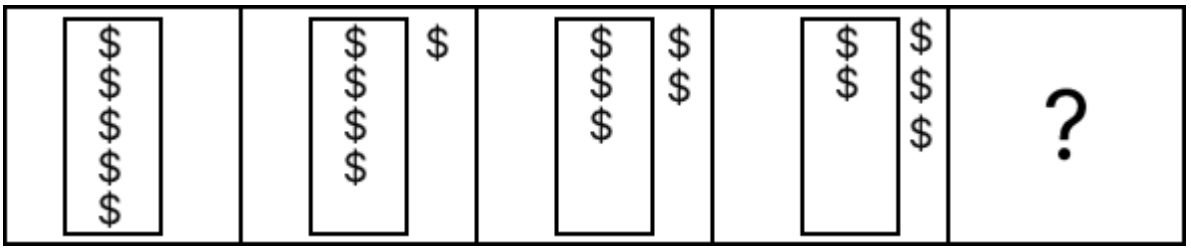


विकल्पों में दी गई आकृतियों में से उस आकृति की पहचान कीजिए जिसे ? के स्थान पर रखने से श्रृंखला तार्किक रूप से पूर्ण हो जाएगी।

**(1)** 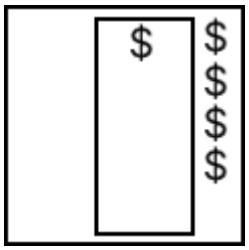
✔

**(2)** 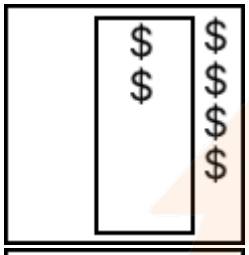

**(3)** 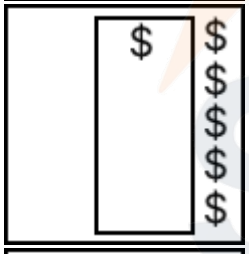

**(4)** 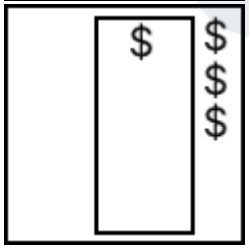

**Q.37** Which of the following letter-clusters should replace # and % so that the pattern and relationship followed between the letter-cluster pair on the left side of :: is the same as that on the right side of ::?
# : QUR :: CFD : %

निम्नलिखित में से किस अक्षर-समूह द्वारा # और % को प्रतिस्थापित किया जाना चाहिए ताकि :: के बाईं ओर के अक्षर-समूह युग्म के बीच अनुसरण किया गया पैटर्न और संबंध, :: के दाईं ओर के अक्षर-समूह युग्म के बीच अनुसरण किए गए पैटर्न और संबंध के समान हो?
# : QUR :: CFD : %

**(1) # = KOL, % = ILJ ✔**
**(2)** # = LNO, % = HLI
**(3)** # = KPL, % = HMI
**(4)** # = LPO, % = IFL

QuickSarkari.com | WhatsApp Channel | Telegram: t.me/quick_sarkari

**Q.38** Based on the English alphabetical order, what should come in place of the question mark (?) in the given series?
FCJ, GDK, HEL, IFM, ?
अंग्रेजी वर्णमाला क्रम के आधार पर, दी गई श्रृंखला में प्रश्न चिह्न (?) के स्थान पर क्या आना चाहिए?
FCJ, GDK, HEL, IFM, ?

**(1)** GNJ
**(2)** JNG
**(3) JGN ✔**
**(4)** GJN

---

**Q.39** Three of the following four letter-cluster pairs are alike in a certain way based on the English alphabetical order and thus form a group. Which option does NOT belong to that group?
(Note: The odd letter-cluster pair is not based on the number of consonants/vowels or their position in the letter-cluster.)
अंग्रेज़ी वर्णमाला क्रम पर आधारित, निम्नलिखित चार अक्षर-समूह युग्मों में से तीन अक्षर-समूह युग्म एक निश्चित प्रकार से एकसमान हैं और इस प्रकार एक ग्रुप बनाते हैं। कौन-सा विकल्प उस ग्रुप से संबंधित नहीं है?
(नोट: असंगत अक्षर-समूह युग्म, व्यंजनों/स्वरों की संख्या या उनकी स्थिति पर आधारित नहीं है।)

**(1) WY - VZ ✔**
**(2)** PS - OR
**(3)** SV - RU
**(4)** OR - NQ

---

**Q.40** If '+' means '−', '−' means '×', '×' means '÷' and '÷' means '+', then what will come in place of the question mark (?) in the following equation?
42 × 6 − 12 ÷ 93 + 25 = ?
यदि '+' का अर्थ '−' है, '−' का अर्थ '×' है, '×' का अर्थ '÷' है और '÷' का अर्थ '+' है, तो निम्नलिखित समीकरण में प्रश्न-चिह्न (?) के स्थान पर क्या आएगा?
42 × 6 − 12 ÷ 93 + 25 = ?

**(1) 152 ✔**
**(2)** 165
**(3)** 173
**(4)** 147

---

## General Awareness

**Q.41** In March 2025, which actor created history by becoming the first Indian celebrity to receive the UK Lifetime Achievement Award from the British Government?
मार्च 2025 में, ब्रिटिश सरकार से UK लाइफटाइम अचीवमेंट अवार्ड प्राप्त करने वाले पहले भारतीय सेलिब्रिटी बनकर किस अभिनेता ने इतिहास रचा?

**(1)** Rajinikanth / रजनीकांत
**(2) Chiranjeevi / चिरंजीवी ✔**
**(3)** Shah Rukh Khan / शाहरुख खान
**(4)** Amitabh Bachchan / अमिताभ बच्चन

---

**Q.42** Who received the Laureus Breakthrough of the Year Award in 2025?

2025 में लॉरियस ब्रेकथ्रू ऑफ द ईयर पुरस्कार किसे प्राप्त हुआ?

**(1) Lamine Yamal / लैमिन यमल ✔**

**(2)** Jude Bellingham / जूड बेलिंगहैम

**(3)** Emma Raducanu / एम्मा रादुकानु

**(4)** Carlos Alcaraz / कार्लोस अलकराज

---

**Q.43** As of October 2025, where was India's first indigenous MRI machine to be installed for trials?

अक्टूबर 2025 तक परीक्षण के लिए भारत की पहली स्वदेशी MRI मशीन कहाँ स्थापित की जानी थी?

**(1)** AIIMS Lucknow / AIIMS लखनऊ

**(2)** AIIMS Rishikesh / AIIMS ऋषिकेश

**(3)** AIIMS Bhopal / AIIMS भोपाल

**(4) AIIMS Delhi / AIIMS दिल्ली ✔**

---

**Q.44** Which of the following is NOT a category of Vedic literature?

निम्नलिखित में से कौन-सा, वैदिक साहित्य का एक वर्ग नहीं है?

**(1)** Upanishads / उपनिषद

**(2)** Brahmanas / ब्राह्मण

**(3)** Samhitas / संहिताएँ

**(4) Puranas / पुराण ✔**

---

**Q.45** In which city was the 2025 BRICS Summit, which focused on "Inclusive and Sustainable Global South", held?

2025 BRICS समिट, जो "इनक्लूसिव एंड सस्टेनेबल ग्लोबल साउथ (Inclusive and Sustainable Global South)" पर केंद्रित था, किस शहर में आयोजित किया गया था?

**(1) Rio de Janeiro / रियो डी जनेरियो ✔**

**(2)** Beijing / बीजिंग

**(3)** Johannesburg / जोहान्सबर्ग

**(4)** New Delhi / नई दिल्ली

---

**Q.46** In June 2025, which of the following organisations was NOT a part of the tripartite Memorandum of Understanding (MoU) signed to tackle road dust pollution in the National Capital Region (NCR)?

जून 2025 में, राष्ट्रीय राजधानी क्षेत्र (NCR) में सड़क की धूल से होने वाले प्रदूषण से निपटने के लिए त्रिपक्षीय समझौता ज्ञापन (MoU) पर हस्ताक्षर करने वाले संगठनों में से कौन-सा संगठन इसका हिस्सा नहीं था?

**(1)** School of Planning and Architecture (SPA) / स्कूल ऑफ प्लानिंग एंड आर्किटेक्चर (SPA)

**(2) National Green Tribunal (NGT) / राष्ट्रीय हरित अधिकरण (NGT) ✔**

**(3)** CSIR-Central Road Research Institute (CSIR-CRRI) / CSIR-केंद्रीय सड़क अनुसंधान संस्थान (CSIR-CRRI)

**(4)** Commission for Air Quality Management in NCR and Adjoining Areas (CAQM) / NCR और निकटवर्ती क्षेत्रों में वायु गुणवत्ता प्रबंधन आयोग (CAQM)

---

**Q.47** Which of the following indicators is NOT used to calculate the Global Hunger Index (GHI) 2024?
वैश्विक भुखमरी सूचकांक (Global Hunger Index - GHI) 2024 की गणना करने के लिए निम्नलिखित में से किस संकेतक का उपयोग नहीं किया गया है?

**(1)** Child mortality / बाल मृत्यु दर (Child mortality)
**(2)** **GDP per capita / प्रति व्यक्ति GDP (GDP per capita) ✔**
**(3)** Child stunting / बाल बौनापन (Child stunting)
**(4)** Child wasting / बाल दुर्बलता (Child wasting)

---

**Q.48** The 'Nano Bubble Technology' launched at the National Zoological Park, Delhi in December 2024 primarily aims to address which of the following problems of pond water?
दिसंबर 2024 में दिल्ली के राष्ट्रीय प्राणी उद्यान में शुरू की गई 'नैनो बबल तकनीक (Nano Bubble Technology)' का मुख्य उद्देश्य तालाब के पानी की निम्नलिखित में से किस समस्या का समाधान करना है?

**(1)** Excessive mineral content / अत्यधिक खनिज अंश
**(2)** Overpopulation of fish / मछलियों की अधिक आबादी
**(3)** **Algae accumulation and foul odour / शैवाल का जमाव और दुर्गन्ध ✔**
**(4)** Temperature regulation / तापमान विनियमन

---

**Q.49** According to the Numbeo Safety Index 2026, which Indian city became the safest city?
नुम्बियो सुरक्षा सूचकांक 2026 (Numbeo Safety Index 2026) के अनुसार कौन-सा भारतीय शहर सबसे सुरक्षित शहर बना?

**(1)** Pune / पुणे
**(2)** **Mangaluru / मंगलुरु ✔**
**(3)** Kochi / कोच्चि
**(4)** Mysuru / मैसूर

---

**Q.50** According to the Standard Chartered SDG Investment Map, what is the target year by which India aims to mobilise USD 2.64 trillion to achieve the UN SDGs?
मानक चार्टर्ड SDG निवेश मानचित्र के अनुसार, वह टारगेट वर्ष क्या है जिस तक भारत UN के SDG को पूरा करने के लिए USD 2.64 ट्रिलियन जुटाने का लक्ष्य रखता है?

**(1)** 2029
**(2)** 2042
**(3)** 2036
**(4)** **2030 ✔**

---

**Q.51** The Pala dynasty in eastern India in the eighth century CE was founded by which of the following?
आठवीं शताब्दी ईस्वी में पूर्वी भारत में निम्नलिखित में से किसके द्वारा पाल राजवंश की स्थापना की गई थी?

**(1)** Devapala / देवपाल
**(2)** **Gopala / गोपाल ✔**
**(3)** Dharmapala / धर्मपाल
**(4)** Dhruva / ध्रुव

---

**Q.52** Which of the following movements was launched to promote indigenous (Swadeshi) goods?
स्वदेशी वस्तुओं को बढ़ावा देने के लिए, निम्नलिखित में से कौन-सा आंदोलन शुरू किया गया था?

**(1)** Non-Cooperation Movement / असहयोग आंदोलन
**(2)** Quit India Movement / भारत छोड़ो आंदोलन
**(3)** **Swadeshi Movement / स्वदेशी आंदोलन ✔**
**(4)** Civil Disobedience Movement / सविनय अवज्ञा आंदोलन

---

**Q.53** Through opposition to which Act did Khan Abdul Ghaffar Khan first play an active role in the Indian freedom movement?

खान अब्दुल गफ्फार खान ने किस अधिनियम के विरोध के माध्यम से भारतीय स्वतंत्रता आंदोलन में पहली बार सक्रिय भूमिका निभाई?

**(1)** Salt Tax / नमक कर

**(2)** **Rowlatt Act / रॉलेट एक्ट ✔**

**(3)** Indian Councils Act / भारतीय परिषद अधिनियम

**(4)** Simon Commission / साइमन आयोग

---

**Q.54** Which four powerful engines of growth were identified in the Union Budget 2025-26?

केंद्रीय बजट 2025-26 में वृद्धि के किन चार शक्तिशाली इंजनों की पहचान की गई?

**(1)** **Agriculture, MSMEs, Investment and Exports / कृषि, MSME, निवेश और निर्यात ✔**

**(2)** Healthcare, Tourism, IT and Financial Services / स्वास्थ्य सेवा, पर्यटन, IT और वित्तीय सेवाएँ

**(3)** Manufacturing, Mining, Energy and Transport / विनिर्माण, खनन, ऊर्जा और परिवहन

**(4)** Industry, Services, Infrastructure and Education / उद्योग, सेवाएँ, अवसंरचना और शिक्षा

---

**Q.55** Which Pala king fought against Vatsaraja?

वत्सराज के साथ संघर्ष करने वाला पाल राजा कौन था?

**(1)** Mihira Bhoja / मिहिर भोज

**(2)** Dhruva / ध्रुव

**(3)** **Dharmapala / धर्मपाल ✔**

**(4)** Nagabhata I / नागभट्ट प्रथम

---

**Q.56** According to the India Justice Report (IJR) 2025 released in April 2025, which state ranked at the top in delivering justice?

अप्रैल 2025 में जारी इंडिया जस्टिस रिपोर्ट (IJR) 2025 के अनुसार, न्याय प्रदान करने में कौन-सा राज्य शीर्ष स्थान पर रहा?

**(1)** **Karnataka / कर्नाटक ✔**

**(2)** Rajasthan / राजस्थान

**(3)** Kerala / केरल

**(4)** Maharashtra / महाराष्ट्र

---

**Q.57** In Sangam literature, the collection of ten long poems is called _____.

संगम साहित्य में दस लंबी कविताओं के संग्रह को _____ कहा जाता है।

**(1)** Ettuttokai / एट्टुत्तोकाई (Ettuttokai)

**(2)** Tolkappiyam / तोलकाप्पियम (Tolkappiyam)

**(3)** Akananuru / अकननुरु (Akananuru)

**(4)** **Pattuppattu / पत्तुप्पाट्टु (Pattuppattu) ✔**

---

**Q.58** Which dynasty ruled Mysore before Hyder Ali came to power in 1761?

1761 में हैदर अली के सत्ता संभालने से पहले किस राजवंश ने मैसूर पर शासन किया था?

**(1)** Chalukya / चालुक्य

**(2)** Maratha / मराठा

**(3)** **Wodeyar / वाडियार ✔**

**(4)** Vijayanagara / विजयनगर

---

**Q.59** The Kailasanatha Temple at Ellora, which was built by carving a single rock, belongs to which dynasty?
एलोरा का कैलाशनाथ मंदिर, जो एकल चट्टान को उत्कीर्ण करके बनाया गया था, किस राजवंश से संबंधित है?

**(1) Rashtrakuta / राष्ट्रकूट ✔**
**(2)** Chalukya / चालुक्य
**(3)** Pallava / पल्लव
**(4)** Gupta / गुप्त

---

**Q.60** When was the Indian National Congress (INC) founded?
भारतीय राष्ट्रीय कांग्रेस (INC) की स्थापना कब हुई थी?

**(1)** 15 August 1885 / 15 अगस्त 1885
**(2)** 26 January 1885 / 26 जनवरी 1885
**(3) 28 December 1885 / 28 दिसंबर 1885 ✔**
**(4)** 30 December 1885 / 30 दिसंबर 1885

---

**Q.61** With regard to the power of Parliament to make laws on a subject in the State List, which of the following statements is INCORRECT?
राज्य सूची के किसी विषय पर कानून बनाने के लिए संसद की शक्ति के संबंध में, निम्नलिखित में से कौन-सा कथन गलत है?

**(1)** During a national emergency / राष्ट्रीय आपातकाल के दौरान
**(2)** If two or more states request it / यदि दो या अधिक राज्य अनुरोध करें
**(3) Passing of a resolution by the Rajya Sabha with a 1/3 majority / राज्यसभा द्वारा 1/3 बहुमत से प्रस्ताव पारित करना ✔**
**(4)** To give effect to an international agreement / किसी अंतर्राष्ट्रीय समझौते को प्रभावी बनाने के लिए

---

**Q.62** Which of the following amendments to the Indian Constitution granted constitutional status to urban local bodies (municipalities)?
भारतीय संविधान में निम्नलिखित में से किस संशोधन ने शहरी स्थानीय निकायों (नगर पालिकाओं) को संवैधानिक दर्जा प्रदान किया?

**(1)** 75th Constitutional Amendment / 75वां संविधान संशोधन
**(2)** 76th Constitutional Amendment / 76वां संविधान संशोधन
**(3) 74th Constitutional Amendment / 74वां संविधान संशोधन ✔**
**(4)** 73rd Constitutional Amendment / 73वां संविधान संशोधन

---

**Q.63** What is the characteristic colour of the flame produced when magnesium ribbon burns in air?
वायु में मैग्नीशियम रिबन के जलने पर उत्पन्न होने वाली ज्वाला का अभिलाक्षणिक रंग क्या होता है?

**(1) Bright white flame / चमकदार सफेद ज्वाला ✔**
**(2)** Green colored smoke / हरे रंग का धुआँ
**(3)** Blue colored light / नीले रंग का प्रकाश
**(4)** Red glowing spark / लाल चमकती चिंगारी

---

**Q.64** The Shillong and Karbi-Anglong plateaus are located in the _____ of the Peninsular Plateau.
शिलांग और कार्बी-आंगलोंग पठार प्रायद्वीपीय पठार के _____ में स्थित हैं।

**(1) north-east / उत्तर-पूर्व ✔**
**(2)** north / उत्तर
**(3)** south / दक्षिण
**(4)** south-west / दक्षिण-पश्चिम

---

**Q.65** 'Sorrow of Bihar' is the nickname of which of the following rivers?

'बिहार का शोक' निम्नलिखित में से किस नदी का उपनाम है?

**(1)** Son / सोन

**(2)** Ghaghara / घाघरा

**(3)** **Kosi / कोसी ✔**

**(4)** Gandak / गंडक

---

**Q.66** What type of vegetation is found in the Great Indian Desert?

विशाल भारतीय मरुस्थल में किस प्रकार की वनस्पति पाई जाती है?

**(1)** Mangrove forests / मैंग्रोव वन

**(2)** Tropical deciduous forests / उष्णकटिबंधीय पर्णपाती वन

**(3)** **Tropical thorn forests / उष्णकटिबंधीय कंटक वन ✔**

**(4)** Montane forests / पर्वतीय वन

---

**Q.67** In which of the following regions of India are tropical deciduous forests found the most?

भारत के निम्नलिखित में से किस क्षेत्र में उष्णकटिबंधीय पर्णपाती वन सर्वाधिक पाए जाते हैं?

**(1)** Western Ghats and North-East / पश्चिमी घाट और उत्तर-पूर्व

**(2)** **Madhya Pradesh, Jharkhand, Chhattisgarh and Odisha / मध्य प्रदेश, झारखंड, छत्तीसगढ़ और ओडिशा ✔**

**(3)** Rajasthan and Gujarat / राजस्थान और गुजरात

**(4)** Jammu and Kashmir / जम्मू और कश्मीर

---

**Q.68** Which type of soil in India is most suitable for cotton cultivation because of its moisture-retention capacity?

भारत में किस प्रकार की मृदा अपनी आर्द्रता-धारण क्षमता के कारण कपास की खेती के लिए सबसे उपयुक्त है?

**(1)** **Black soil / काली मृदा ✔**

**(2)** Laterite soil / लैटेराइट मृदा

**(3)** Alluvial soil / जलोढ़ मृदा

**(4)** Red soil / लाल मृदा

---

**Q.69** Which of the following was a major outcome of India's economic reforms introduced for the industrial sector in 1991?

निम्नलिखित में से कौन-सा 1991 में औद्योगिक क्षेत्र के लिए शुरू किए गए भारत के आर्थिक सुधारों का एक प्रमुख परिणाम था?

**(1)** The industrial sector remained stagnant with little innovation / अल्प नवाचार के साथ औद्योगिक क्षेत्र स्थिर बना रहा

**(2)** Heavy industries remained the sole focus of industrial policy / भारी उद्योग ही औद्योगिक नीति का एकमात्र केंद्र बने रहे

**(3)** Government enterprises retained exclusive control over all industries / सभी उद्योगों पर सरकारी उद्यमों का विशेष नियंत्रण बना रहा

**(4)** **The industrial sector became more competitive and diversified / औद्योगिक क्षेत्र अधिक प्रतिस्पर्धी और विविध हो गया ✔**

---

**Q.70** Which of the following Articles of the Indian Constitution provides for a financial emergency?

भारतीय संविधान के निम्नलिखित में से किस अनुच्छेद में वित्तीय आपातकाल का प्रावधान है?

**(1)** Article 357 / अनुच्छेद 357

**(2)** **Article 360 / अनुच्छेद 360 ✔**

**(3)** Article 359 / अनुच्छेद 359

**(4)** Article 358 / अनुच्छेद 358

---

**Q.71** According to the World Bank's Spring 2025 Poverty and Equity Brief, how did the proportion of people living in extreme poverty (living on less than US$ 2.15 per day) in India change between 2011-12 and 2022-23?

विश्व बैंक की स्प्रिंग 2025 पॉवर्टी एंड इक्विटी ब्रीफ के अनुसार, 2011-12 और 2022-23 के बीच भारत में अत्यधिक गरीबी (प्रतिदिन 2.15 अमेरिकी डॉलर से कम पर गुजारा करने वाले) में रहने वाले लोगों के अनुपात में किस प्रकार परिवर्तन हुआ?

**(1)** Decreased from 20.0 percent to 5.0 percent / 20.0 प्रतिशत से घटकर 5.0 प्रतिशत हो गया

**(2)** Increased from 2.3 percent to 16.2 percent / 2.3 प्रतिशत से बढ़कर 16.2 प्रतिशत हो गया

**(3)** Remained stable at about 10.0 percent / लगभग 10.0 प्रतिशत पर स्थिर रहा

**(4) Decreased from 16.2 percent to 2.3 percent / 16.2 प्रतिशत से घटकर 2.3 प्रतिशत हो गया ✔**

---

**Q.72** The power of judicial review is vested in:

न्यायिक पुनर्विलोकन की शक्ति किसके पास निहित होती है?

**(1)** the President / राष्ट्रपति

**(2)** the Election Commission / निर्वाचन आयोग

**(3) the Supreme Court and the High Courts / सर्वोच्च न्यायालय और उच्च न्यायालय ✔**

**(4)** the Parliament / संसद

---

**Q.73** Which of the following Indian states has significant deposits of steatite (soapstone), which is widely used in the manufacture of electrical insulators?

निम्नलिखित में से किस भारतीय राज्य में स्टिऐटाइट (सेलखड़ी) के महत्वपूर्ण भंडार हैं, जिनको व्यापक रूप से विद्युतरोधियों के विनिर्माण में उपयोग किया जाता है?

**(1)** Karnataka / कर्नाटक

**(2)** Jammu and Kashmir / जम्मू और कश्मीर

**(3)** Odisha / ओडिशा

**(4) Rajasthan / राजस्थान ✔**

---

**Q.74** What was the primary objective behind the introduction of the Minimum Alternate Tax (MAT) by the Government of India in 1996–97?

भारत सरकार द्वारा 1996–97 में न्यूनतम वैकल्पिक कर (MAT) लागू करने के पीछे प्राथमिक उद्देश्य क्या था?

**(1)** To reduce personal income tax to the minimum limit / व्यक्तिगत आयकर को न्यूनतम सीमा तक कम करना

**(2) To ensure minimum tax payment by profitable companies / लाभप्रद कंपनियों द्वारा न्यूनतम कर भुगतान सुनिश्चित करना ✔**

**(3)** To abolish corporate dividend taxation / कॉर्पोरेट लाभांश कराधान को समाप्त करना

**(4)** To bring customs duty rates to the minimum level / सीमा शुल्क दरों को न्यूनतम स्तर तक लाना

---

**Q.75** Which of the following Parts of the Indian Constitution deals with the Directive Principles of State Policy?

भारतीय संविधान का निम्नलिखित में से कौन-सा भाग, राज्य के नीति निर्देशक सिद्धांतों से संबंधित है?

**(1)** Part II / भाग II

**(2)** Part VI / भाग VI

**(3) Part IV / भाग IV ✔**

**(4)** Part VIII / भाग VIII

---

**Q.76** Which of the following is the most electronegative element in the modern periodic table?

आधुनिक आवर्त सारणी में निम्नलिखित में से कौन-सा तत्व सर्वाधिक विद्युतऋणात्मक है?

**(1)** Chlorine / क्लोरीन

**(2)** Oxygen / ऑक्सीजन

**(3)** **Fluorine / फ्लोरीन ✔**

**(4)** Nitrogen / नाइट्रोजन

---

**Q.77** What is the function of the xylem in plants?

पौधों में जाइलम का क्या कार्य है?

**(1)** Photosynthesis / प्रकाश संश्लेषण

**(2)** Reproduction / प्रजनन

**(3)** **Transport water and minerals / जल और खनिजों का परिवहन ✔**

**(4)** Transport food / भोजन का परिवहन

---

**Q.78** Which of the following options best describes the role of infrastructure in India's economic growth?

निम्नलिखित में से कौन-सा विकल्प, भारत की आर्थिक वृद्धि में अवसंरचना की भूमिका को सर्वोत्तम रूप से निरूपित करता है?

**(1)** **It acts as a key driver of economic development / यह आर्थिक विकास के प्रमुख चालक के रूप में कार्य करता है ✔**

**(2)** It limits manufacturing capacity / यह विनिर्माण क्षमता को सीमित करता है

**(3)** It reduces the need for private investment / यह निजी निवेश की आवश्यकता को कम करता है

**(4)** It mainly increases export tariffs / यह मुख्य रूप से निर्यात प्रशुल्क में वृद्धि करता है

---

**Q.79** What is extradition?

प्रत्यर्पण क्या है?

**(1)** Forcing a foreign national to leave the country / किसी विदेशी नागरिक को देश छोड़ने के लिए मजबूर करना

**(2)** Blocking the trade of other countries with a particular country / किसी विशेष देश के साथ अन्य देशों के व्यापार को अवरुद्ध करना

**(3)** **Handing over a foreign national to his country for trial for his crimes / किसी विदेशी नागरिक को उसके अपराधों के मुकदमे के लिए उसके देश को सौंपना ✔**

**(4)** Forcing a person to leave the country of which he is a citizen / किसी व्यक्ति को उस देश को छोड़ने के लिए मजबूर करना जिसका वह नागरिक है

---

**Q.80** Which of the following Parts of the Indian Constitution deals with the relations between the Union and the States?

भारतीय संविधान का निम्नलिखित में से कौन-सा भाग, केंद्र और राज्यों के बीच संबंधों से संबंधित है?

**(1)** Part IX / भाग IX

**(2)** **Part XI / भाग XI ✔**

**(3)** Part X / भाग X

**(4)** Part XII / भाग XII

---

## Arithmetical and Numerical Ability

**Q.81** In how many years will ₹360 be received as interest on a sum of ₹6,000 at the rate of 4% per annum?
₹6,000 की धनराशि पर 4% वार्षिक दर से कितने वर्षों में ब्याज के रूप में ₹360 प्राप्त होगा?

**(1)** 0.5
**(2)** **1.5** ✔
**(3)** 3
**(4)** 2.5

**Q.82** Find the value of (-18) + 10 ÷ 10 + 6.
(-18) + 10 ÷ 10 + 6 का मान ज्ञात कीजिए।

**(1)** -9
**(2)** **-11** ✔
**(3)** -10
**(4)** -13

**Q.83** How many prime numbers lie between 456 and 468 (both inclusive)?
456 और 468 (दोनों को शामिल करते हुए) के बीच आने वाली अभाज्य संख्याओं की संख्या कितनी है?

**(1)** **4** ✔
**(2)** 2
**(3)** 3
**(4)** 5

**Q.84** Alice invests a sum of ₹50,000 in a stock on which she gets an annual return of 8%, and a sum of ₹30,000 in a bond on which she gets an annual return of 5%. Find her weighted average annual return. (Round off your answer to two decimal places.)
एलिस ₹50,000 की धनराशि एक स्टॉक में निवेश करती है जिस पर उसे 8% वार्षिक रिटर्न प्राप्त होता है तथा ₹30,000 की धनराशि एक बॉन्ड में निवेश करती है जिस पर उसे 5% वार्षिक रिटर्न प्राप्त होता है। उसका भारित औसत वार्षिक रिटर्न ज्ञात कीजिए। (अपने उत्तर को दशमलव के दो स्थानों तक पूर्णांकित कीजिए।)

**(1)** 6.57%
**(2)** **6.88%** ✔
**(3)** 6.67%
**(4)** 6.38%

**Q.85** A person buys 8 identical articles for ₹20. If he sells each article for ₹2.90, what will be his profit percentage?
एक व्यक्ति ₹20 में एक जैसी 8 वस्तुएँ खरीदता है। यदि वह प्रत्येक वस्तु को ₹2.90 में बेचता है, तो उसका लाभ प्रतिशत कितना होगा?

**(1)** **16%** ✔
**(2)** 17%
**(3)** 14.79%
**(4)** 13.79%

**Q.86** Simplify $(a^{-7} \times b^4 \times c^{-5}) \times (a^4 \times b^5 \times c^{-3})$

.

$(a^{-7} \times b^4 \times c^{-5}) \times (a^4 \times b^5 \times c^{-3})$
को सरल कीजिए।

**(1)** $a^{-5} \times b^5 \times c^{-1}$

**(2)** $a^{-3} \times b^9 \times c^{-8}$ ✔

**(3)** $a^6 \times b^7 \times c^5$

**(4)** $a^{-6} \times b^6 \times c^{-3}$

---

**Q.87** A toy was bought for ₹120 and sold for ₹96. Find the loss percentage.

एक खिलौने को ₹120 में खरीदा गया और ₹96 में बेचा गया। प्रतिशत हानि ज्ञात कीजिए।

**(1)** 18%

**(2)** 25%

**(3)** 20% ✔

**(4)** 22%

---

**Q.88** In what ratio should a shopkeeper mix two varieties of wheat costing ₹54 per kg and ₹108 per kg so that by selling the mixture at ₹141 per kg he gets a profit of 50%?

एक दुकानदार को ₹54 प्रति kg और ₹108 प्रति kg वाली गेहूं की दो किस्मों को किस अनुपात में मिलाना चाहिए ताकि मिश्रण को ₹141 प्रति kg पर बेचने पर उसे 50% का लाभ प्राप्त हो?

**(1)** 2:3

**(2)** 9:21

**(3)** 17:25

**(4)** 7:20 ✔

---

**Q.89** A person who spends 50% of his monthly income saves ₹7087 per month. Find his monthly expenditure (in ₹).

एक व्यक्ति जो अपनी मासिक आय का 50% खर्च करता है, वह प्रति माह ₹7087 का बचत करता है। उसका मासिक खर्च (₹ में) ज्ञात कीजिए।

**(1)** 7087 ✔

**(2)** 7110

**(3)** 7170

**(4)** 7123

---

**Q.90** Given that $139^{0.89} = x$, $139^{0.47} = y$ and $x^z = y^3$, then the value of z is closest to:

दिया गया है कि $139^{0.89} = x$, $139^{0.47} = y$ और $x^z = y^3$ है, तो z का मान किसके निकटतम है?

**(1)** 4.09

**(2)** 5.04

**(3)** 2.85

**(4)** 1.58 ✔

---

**Q.91** If the difference between the compound interest (compounded annually) and the simple interest for three years at the rate of 5% per annum is ₹488, then the principal is ₹_____.

यदि 5% वार्षिक ब्याज दर पर तीन वर्षों के लिए चक्रवृद्धि ब्याज (वार्षिक रूप से संयोजित) और साधारण ब्याज के बीच का अंतर ₹488 है, तो मूलधन ₹_____ है।

**(1) 64000 ✔**

**(2)** 63425

**(3)** 65200

**(4)** 64420

---

**Q.92** Simplify 2/3 + 4/9 .

2/3 + 4/9 को सरल कीजिए।

**(1)** 14/9

**(2)** 12/9

**(3) 10/9 ✔**

**(4)** 8/9

---

**Q.93** Amit has two grandsons, Gopal and Akshay. Gopal, aged 13 years, gets some amount from Amit, and Akshay, aged 14 years, gets the remaining amount. But Gopal and Akshay will get the amount only when they turn 22 years old. Till then, the amount will remain deposited in a bank at 10% per annum compound interest, where the interest is compounded annually. When both turn 22 years old, they get equal amounts. If Amit had a total of ₹25200, then how much amount (in ₹) did Amit initially give to Akshay?

अमित के दो पोते गोपाल और अक्षय हैं। 13 वर्षीय गोपाल को अमित से कुछ धनराशि मिलती है, और 14 वर्षीय अक्षय को शेष धनराशि मिलती है। लेकिन गोपाल और अक्षय को धनराशि तभी मिलेगी जब वे 22 वर्ष के हो जाएंगे। तब तक, यह धनराशि एक बैंक में 10% वार्षिक चक्रवृद्धि ब्याज दर पर जमा रहेगी जहां ब्याज वार्षिक रूप से संयोजित होता है। जब दोनों 22 वर्ष के हो जाते हैं, तो उन्हें बराबर धनराशि मिलती है। यदि अमित के पास कुल ₹25200 थे, तो शुरुआत में अमित ने अक्षय को कितनी धनराशि (₹ में) दी थी?

**(1)** 11750

**(2)** 13550

**(3)** 12000

**(4) 13200 ✔**

---

**Q.94** The table given below shows the number of persons who have chosen different products and the percentage distribution of men and women among them.

Product | Number of persons | Percentage Men | Women

P | 13780 | 65 | 35

R | 33623 | 59 | 41

T | 25350 | 46 | 54 What is the total number of women who have chosen product P and product T?

नीचे दी गई तालिका उन व्यक्तियों की संख्या दर्शाती है जिन्होंने विभिन्न उत्पादों का चयन किया है और उनमें पुरुषों और महिलाओं का प्रतिशत वितरण दिया गया है।

उत्पाद | व्यक्तियों की संख्या | प्रतिशत पुरुष | महिला

P | 13780 | 65 | 35

R | 33623 | 59 | 41

T | 25350 | 46 | 54 उत्पाद P और उत्पाद T का चयन करने वाली महिलाओं की कुल संख्या कितनी है?

**(1)** 18118

**(2)** 18320

**(3)** 18200

**(4) 18512 ✔**

---

**Q.95** Find the least common multiple (LCM) of 7, 16, 24 and 85.

7, 16, 24 और 85 का लघुत्तम समापवर्त्य (LCM) ज्ञात कीजिए।

**(1)** 28550

**(2)** **28560** ✔

**(3)** 28540

**(4)** 28570

---

**Q.96** The average of 13 numbers is 7. If each number is multiplied by 5, what will be the new average?

13 संख्याओं का औसत 7 है। यदि प्रत्येक संख्या को 5 से गुणा कर दिया जाए, तो नया औसत कितना होगा?

**(1)** 7

**(2)** 5

**(3)** 13

**(4)** **35** ✔

---

**Q.97** The number 587407 is divisible by which of the following?

संख्या 587407 निम्नलिखित में से किससे विभाज्य है?

**(1)** 34

**(2)** 47

**(3)** 43

**(4)** **41** ✔

---

**Q.98** What is the largest number which, when it divides 992 and 2335, leaves remainders 2 and 1, respectively?

वह सबसे बड़ी संख्या कौन-सी है, जिसके द्वारा 992 और 2335 को विभाजित करने पर क्रमशः 2 और 1 शेषफल प्राप्त होता है?

**(1)** 2

**(2)** **6** ✔

**(3)** 10

**(4)** 11

---

QuickSarkari.com | WhatsApp Channel | Telegram: t.me/quick_sarkari

**Q.99** The pie chart given below shows the percentage distribution of the number of bags manufactured by a company in five different years.
Study the chart and answer the following question.

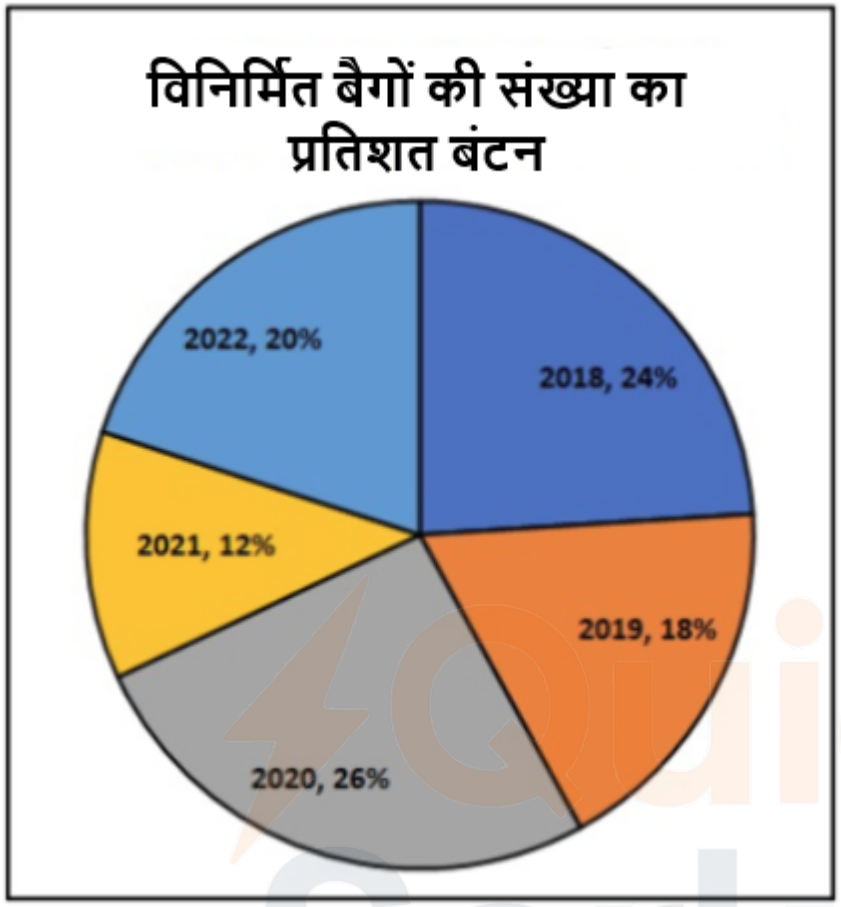


If the total number of bags manufactured in the five years is 38,000, then find the difference between the total number of bags manufactured in 2021 and 2022 and the total number of bags manufactured in 2018 and 2019.

नीचे दिया गया पाई चार्ट एक कंपनी द्वारा पांच अलग-अलग वर्षों में विनिर्मित बैगों की संख्या का प्रतिशत बंटन दर्शाता है।
चार्ट का अध्ययन कीजिए और निम्नलिखित प्रश्न का उत्तर दीजिए।
यदि पाँच वर्षों में विनिर्मित बैगों की कुल संख्या 38,000 है, तो 2021 तथा 2022 में विनिर्मित बैगों की कुल संख्या और 2018 तथा 2019 में विनिर्मित बैगों की कुल संख्या के बीच का अंतर ज्ञात कीजिए।

**(1)** 3700
**(2)** 3400
**(3) 3800** ✔
**(4)** 3000

---

**Q.100** A number is first increased by 20% and then by 10%. Find the total percentage increase.

एक संख्या में पहले 20% और फिर 10% की वृद्धि की जाती है। कुल प्रतिशत वृद्धि ज्ञात कीजिए।

**(1)** 35%
**(2)** 30%
**(3) 32%** ✔
**(4)** 28%

---

**Q.101** The marked price of an article is ₹127. The shopkeeper gives a discount of 18% on the purchase of the article, and thus he makes a profit of 27%. Find the cost price of the article.

किसी वस्तु का अंकित मूल्य ₹127 है। दुकानदार वस्तु की खरीद पर 18% की छूट देता है, और इस प्रकार उसे 27% का लाभ होता है। वस्तु का क्रय मूल्य ज्ञात कीजिए।

**(1)** ₹73

**(2)** ₹51

**(3) ₹82 ✔**

**(4)** ₹61

---

**Q.102** The total surface area (in $m^2$) of a cube, each of whose edges measures 117 m, is:

एक घन, जिसके प्रत्येक किनारे की माप 117 m है, का संपूर्ण पृष्ठीय क्षेत्रफल ($m^2$ में) कितना है?

**(1)** 82122

**(2)** 82116

**(3) 82134 ✔**

**(4)** 82092

---

**Q.103** The marked (printed) price of a laptop is ₹55,500. After two successive discounts, it is sold for ₹40,000. If the first discount is 20%, find the percentage of the second discount. (Round off your answer to two decimal places.)

एक लैपटॉप का अंकित (मुद्रित) मूल्य ₹55,500 है। दो क्रमिक छूटों के बाद इसे ₹40,000 में बेचा जाता है। यदि पहली छूट 20% है, तो दूसरी छूट का प्रतिशत ज्ञात कीजिए। (अपने उत्तर को दशमलव के दो स्थानों तक पूर्णांकित कीजिए।)

**(1) 9.91% ✔**

**(2)** 9.71%

**(3)** 9.21%

**(4)** 9.01%

---

**Q.104** Two trains X and Y start travelling from station A to station B at the same time. The speed of train X is 80 km/h. The journey of train Y includes a halt of one hour in between, and its overall average speed (including the halt) is 90 km/h. Train X takes one hour more than train Y to reach station B. If train Y does not stop anywhere on the way, find its average speed.

दो ट्रेनें X और Y एक ही समय पर स्टेशन A से स्टेशन B के लिए यात्रा करना शुरू करती हैं। ट्रेन X की चाल 80 km/h है। ट्रेन Y की यात्रा में बीच में एक घंटे का ठहराव शामिल है, और इसकी समग्र औसत चाल (ठहराव सहित) 90 km/h है। ट्रेन X को स्टेशन B तक पहुँचने में ट्रेन Y की तुलना में एक घंटा अधिक लगता है। यदि ट्रेन Y रास्ते में कहीं नहीं रुकती है, तो उसकी औसत चाल ज्ञात कीजिए।

**(1)** 96 km/h

**(2) 102 6/7 km/h ✔**

**(3)** 100 km/h

**(4)** 94 5/6 km/h

---

**Q.105** A right triangle with sides 20 cm, 48 cm and 52 cm is rotated about the side of 20 cm to form a cone. The total surface area (in $cm^2$) of the cone so formed is:

20 cm, 48 cm और 52 cm भुजाओं वाले एक समकोण त्रिभुज को 20 cm वाली भुजा के परितः घुमाकर एक शंकु बनाया जाता है। इस प्रकार बने शंकु का संपूर्ण पृष्ठीय क्षेत्रफल ($cm^2$ में) कितना है?

**(1)** 4380π

**(2)** 4880π

**(3) 4800π ✔**

**(4)** 4860π

---

**Q.106** The ratio of the arithmetic mean of two numbers to one of the numbers is 3 : 5. What is the ratio of the smaller number to the larger one?

दो संख्याओं के समांतर माध्य का उनमें से एक संख्या से अनुपात 3 : 5 है। छोटी संख्या का बड़ी संख्या से अनुपात क्या है?

**(1)** 1 : 4

**(2)** 1 : 3

**(3)** 1 : 2

**(4) 1 : 5 ✔**

---

**Q.107** Akshat and Neha together invested ₹45700 in a business. At the end of the year, out of a total profit of ₹5000, Akshat's share was ₹1900. What was Akshat's investment?

अक्षत और नेहा ने मिलकर एक व्यवसाय में ₹45700 निवेश किए। वर्ष के अंत में, ₹5000 के कुल लाभ में से अक्षत का हिस्सा ₹1900 था। अक्षत का निवेश कितना था?

**(1)** ₹17435

**(2)** ₹17100

**(3) ₹17366 ✔**

**(4)** ₹17950

---

**Q.108** A shopkeeper marks the price of an article 75% above its cost price. What percentage of discount should be given on the marked price to earn a profit of 19%?

एक दुकानदार किसी वस्तु का अंकित मूल्य उसके क्रय मूल्य से 75% अधिक निर्धारित करता है। 19% का लाभ प्राप्त करने के लिए अंकित मूल्य पर कितने प्रतिशत की छूट दी जानी चाहिए?

**(1) 32% ✔**

**(2)** 30%

**(3)** 34%

**(4)** 31%

---

**Q.109** If x is inversely proportional to y, and y = 2 when x = 8, find the value of x when y = 43.

यदि x, y के व्युत्क्रमानुपाती है, और x = 8 होने पर y = 2 है, तो y = 43 होने पर x का मान ज्ञात कीजिए।

**(1) 16/43 ✔**

**(2)** 16/44

**(3)** 17/44

**(4)** 18/46

---

**Q.110** A pipe can fill a tank in 18 hours. Another pipe can empty the full tank in 19 hours. If both the pipes are opened together, find the time (in hours) taken to fill the tank.

एक पाइप किसी टैंक को 18 घंटे में भर सकता है। दूसरा पाइप भरे हुए टैंक को 19 घंटे में खाली कर सकता है। यदि दोनों पाइप को एक साथ चालू कर दिए जाएं, तो टैंक को भरने में लगने वाला समय (घंटों में) ज्ञात कीजिए।

**(1)** 344

**(2) 342 ✔**

**(3)** 345

**(4)** 343

---

**Q.111** The internal surface area (in $m^2$) of an open cuboidal tank whose internal length, internal breadth, and internal height are given as 30 m, 44 m, and 29 m, respectively, is:

एक खुली घनाभाकार टंकी, जिसकी आंतरिक लंबाई, आंतरिक चौड़ाई और आंतरिक ऊँचाई क्रमशः 30 m, 44 m और 29 m दी गई है, का आंतरिक पृष्ठीय क्षेत्रफल ($m^2$ में) कितना है?

**(1)** 5654
**(2)** 5645
**(3)** **5612** ✔
**(4)** 5565

---

**Q.112** Naveen and Ravindra start a business with investments of ₹11000 and ₹83000, respectively. Naveen invests for 10 months and Ravindra invests for 5 months. If ₹142632 at the end of the year is equal to 10% of their profit, what is Ravindra's share (in ₹)?

नवीन और रवींद्र क्रमशः ₹11000 और ₹83000 के निवेश के साथ एक व्यवसाय शुरू करते हैं। नवीन 10 महीने के लिए निवेश करता है और रवींद्र 5 महीने के लिए निवेश करता है। यदि वर्ष के अंत में लाभ ₹142632 है, जो उनके लाभ के 10% के बराबर है, तो रवींद्र का हिस्सा (₹ में) कितना है?

**(1)** 1127427
**(2)** 1127451
**(3)** 1127434
**(4)** **1127472** ✔

---

**Q.113** A solid metallic sphere of radius 4 cm is melted and recast into 64 identical spheres. What is the ratio of the surface area of the original sphere to the total surface area of 3 smaller spheres thus formed?

4 cm त्रिज्या वाले एक ठोस धात्विक गोले को पिघलाकर 64 एकसमान गोलों में ढाला जाता है। मूल गोले के पृष्ठीय क्षेत्रफल का, इस प्रकार निर्मित 3 छोटे गोलों के संपूर्ण पृष्ठीय क्षेत्रफल से अनुपात कितना है?

**(1)** 16 : 9
**(2)** 32 : 1
**(3)** **16 : 3** ✔
**(4)** 14 : 3

---

**Q.114** 16 men and 4 women together can complete a work in 8 days, and 10 men and 12 women together can complete the same work in 9 days. The work of how many women is equal to the work of one man?

16 पुरुष और 4 महिलाएं मिलकर किसी कार्य को 8 दिनों में पूरा कर सकते हैं तथा 10 पुरुष और 12 महिलाएं मिलकर उसी कार्य को 9 दिनों में पूरा कर सकते हैं। कितनी महिलाओं का कार्य, एक पुरुष के कार्य के बराबर है?

**(1)** 7
**(2)** 3
**(3)** 4
**(4)** **2** ✔

---

**Q.115** If the lateral surface area of a cylinder is 348.7 $cm^2$ and its height is 13 cm, then find its volume. (Use π = 3.14 and round off your answer to two decimal places.)

यदि एक बेलन का पार्श्व पृष्ठीय क्षेत्रफल 348.7 $cm^2$ है और इसकी ऊँचाई 13 cm है, तो इसका आयतन ज्ञात कीजिए।
(π = 3.14 का प्रयोग कीजिए और अपने उत्तर को दशमलव के दो स्थानों तक पूर्णांकित कीजिए।)

**(1)** 705.38 $cm^3$
**(2)** **744.68 $cm^3$** ✔
**(3)** 729.83 $cm^3$
**(4)** 781.26 $cm^3$

---

**Q.116** A cone has a radius of 5 cm and a height of 12 cm. If the cost of painting the curved surface area of the cone is ₹2 per $cm^2$, what will be the total cost of painting the cone?

एक शंकु की त्रिज्या 5 cm और ऊँचाई 12 cm है। यदि शंकु के वक्र पृष्ठीय क्षेत्रफल को पेंट करने की लागत ₹2 प्रति $cm^2$ है, तो शंकु को पेंट करने की कुल लागत कितनी होगी?

**(1)** ₹120π

**(2)** **₹130π ✔**

**(3)** ₹65π

**(4)** ₹60π

---

**Q.117** If a 560 m long train is running at a speed of 36 km/h, how much time (in seconds) will it take to cross a tunnel 850 m long?

यदि 560 m लंबी ट्रेन 36 km/h की चाल से चल रही हो, तो उसे 850 m लंबी सुरंग को पार करने में कितना समय (सेकंड में) लगेगा?

**(1)** 134

**(2)** 133

**(3)** 144

**(4)** **141 ✔**

---

**Q.118** A and B together can complete a work in 24 days. If A alone can complete the same work in 28 days, in how many days can B alone complete one-third of the work?

A और B मिलकर किसी कार्य को 24 दिनों में पूरा कर सकते हैं। यदि A अकेले उसी कार्य को 28 दिनों में पूरा कर सकता है, तो B अकेले एक-तिहाई कार्य कितने दिनों में पूरा कर सकता है?

**(1)** 112

**(2)** 168

**(3)** **56 ✔**

**(4)** 224

---

**Q.119** What is the height of a cylinder having a radius of 3.5 cm and a curved surface area of 242 $cm^2$? (Take π = 22/7)

3.5 cm त्रिज्या और 242 $cm^2$ वक्र पृष्ठीय क्षेत्रफल वाले बेलन की ऊँचाई क्या है? (π = 22/7 लीजिए)

**(1)** 10 cm

**(2)** 12 cm

**(3)** **11 cm ✔**

**(4)** 10.5 cm

---

**Q.120** The ratio of the perimeter to the breadth of a rectangle is 5 : 2. If its area is 196 $cm^2$, determine the perimeter of the rectangle (in cm).

एक आयत के परिमाप का उसकी चौड़ाई से अनुपात 5 : 2 है। यदि इसका क्षेत्रफल 196 $cm^2$ है, तो आयत का परिमाप (cm में) ज्ञात कीजिए।

**(1)** 65

**(2)** **70 ✔**

**(3)** 60

**(4)** 75

---

## English Language and Comprehension

**Q.121** Find out the one-word substitute to the following:
The act of speaking or writing at length about something without interruption is referred to as-------.

**(1) Discourse ✔**
**(2)** Monologue
**(3)** Soliloquy
**(4)** Dialogue

---

**Q.122** Select the option that can be used as a one-word substitute for the given group of words.
A book that contains information on all branches of knowledge

**(1)** Ledger
**(2) Encyclopedia ✔**
**(3)** Dictionary
**(4)** Almanac

---

**Q.123** Select the option that arranges the sentences in the most coherent and logical sequence.
A. These devices revolutionized the way we communicate.
B. Mobile phones have come a long way since their invention.
C. Today, they are mini-computers with multiple functionalities.
D. Initially, they were bulky and used only for calling.

**(1)** ABDC
**(2) BDAC ✔**
**(3)** DBAC
**(4)** BDCA

---

**Q.124** Choose the sentence that uses the correct present tense.

**(1)** We attend the conference tomorrow.
**(2)** We have attended the conference tomorrow.
**(3)** We have been attending the conference tomorrow.
**(4) We are attending the conference tomorrow. ✔**

---

**Q.125** Choose the option that can substitute the given group of words.
A sentimental longing or wistful affection for a period in the past.

**(1) Nostalgia ✔**
**(2)** Amnesia
**(3)** Anxiety
**(4)** Euphoria

---

**Q.126** Select the most appropriate option to fill in the blank.
I saw _____ unicorn in the zoo yesterday.

**(1)** no article required
**(2)** the
**(3) a ✔**
**(4)** an

---

**Q.127** In the given question, a statement divided into different segments is given. Rearrange all the segments to form a coherent statement.
with the idea of generating employment, maintaining cattle conservation, providing drinking water supply, etc., (P) / in order to mitigate the sufferings of the drought- affected areas, ( Q) / to start drought relief operations ( R) / the state government is fully geared up (S).

**(1)** PQRS
**(2) SPQR ✔**
**(3)** RQPS
**(4)** QSRP

---

**Q.128** A sentence has been divided into five word segments that are jumbled, with one word segment fixed at the beginning. Arrange the remaining segments in the correct order to form a complete sentence.
Scientists are
A. new treatments
B. working on
C. to fight cancer
D. innovative

**(1)** A – C – B – D
**(2)** D – A – B – C
**(3) B – D – A – C ✔**
**(4)** B – A – C – D

---

**Q.129** Choose the correct option to complete the sentence.
The professor praised the novel for its _____ portrayal of human emotions, which made the characters feel real to the readers.

**(1)** vividity
**(2) vivid ✔**
**(3)** vividness
**(4)** vividly

---

**Q.130** Choose the most appropriate adverb and complete the following sentence.
The in-plant training was offered for not _____ than 15 final year undergraduate students as a part of curriculum development for obtaining their degree.

**(1)** Little
**(2)** Lesser
**(3) Fewer ✔**
**(4)** Less

---

**Q.131** Complete the sentence with an appropriate word If the company ___ to diversify its offerings, it might not face such challenges.

**(1)** chooses
**(2)** choosing
**(3) had chosen ✔**
**(4)** choose

---

QuickSarkari.com | WhatsApp Channel | Telegram: t.me/quick_sarkari

**Q.132** In the given question, a statement divided into different segments is given. The first segment is fixed, rearrange the other segments to form a coherent statement.
A. With advancements in technology, /B. has become faster and more efficient, / C. communication between individuals /D. breaking barriers of time and distance

**(1) A, C, B, D ✔**
**(2)** A, D, C, B
**(3)** A, B, C, D
**(4)** A, C, D, B

---

**Q.133** In this question, a statement with some highlighted text is given. From the list of alternatives provided, select the option which can replace the highlighted text.
The documentary film by National Geographic reminded us that we should try to save the world's largest animals that eat meat or flesh of other animals from extinction.

**(1)** piscivores
**(2) carnivores ✔**
**(3)** cannibals
**(4)** herbivores

---

**Q.134** Choose the correct preposition to complete the sentence.
The shopkeeper does not have the toys, I was looking _____.

**(1)** to
**(2) for ✔**
**(3)** by
**(4)** about

---

**Q.135** Choose the correct article to complete the sentence Take _____ umbrella with you.

**(1)** the
**(2) an ✔**
**(3)** No article
**(4)** a

---

**Q.136** Select the option that best describes the overall structure of the passage.

**(1)** It focuses only on the current condition of a neglected garden without referring to its past.
**(2)** It compares two different gardens and evaluates which one is better maintained.
**(3)** It begins with a historical event, shifts to present success, and ends with future expansion plans.
**(4) It introduces a place, describes its past significance, explains its decline, and ends with a note of hope. ✔**

---

**Q.137** Select the most appropriate title for the passage.

**(1)** Celebration of modern development
**(2)** Impact of Mystery and Adventure
**(3)** Role of Humour and satire
**(4) The Role of Nostalgia and negligence ✔**

---

QuickSarkari.com | WhatsApp Channel | Telegram: t.me/quick_sarkari

**Q.138** What is the central theme of the passage?

**(1)** Scientific and detailed study of rare plants

**(2)** **Neglect of cultural and natural heritage over time ✔**

**(3)** Rapid urban expansion and industrial growth

**(4)** Tourism development in modern cities

---

**Q.139** What is the tone of the passage?

**(1)** Anger and criticism with a touch of patriotism

**(2)** Excited and celebratory with a note of irony

**(3)** **Nostalgic and melancholic with a hint of hope ✔**

**(4)** Humorous and playful in a sarcastic manner

---

**Q.140** Select the most appropriate antonym of the word 'stumble.'

**(1)** **Rise ✔**

**(2)** Sway

**(3)** Smile

**(4)** Innovate

---

**Q.141** A group of words has been underlined in the sentence given below. Choose the correct idiom to substitute the underlined section of the sentence.
She finally revealed the secret unintentionally during the conversation.

**(1)** beat around the bush

**(2)** hit the nail on the head

**(3)** **let the cat out of the bag ✔**

**(4)** put all her eggs in one basket

---

**Q.142** Select the option that expresses the given sentence in reported (or indirect) speech.

**(1)** He said he visits us tomorrow.

**(2)** **He said that he would visit us the next day. ✔**

**(3)** He said that, 'I will visit you tomorrow.'

**(4)** He said that he will visiting us the next day.

---

**Q.143** Select the correct direct speech:
Maria exclaimed that it was a very beautiful painting.
Maria exclaimed, "_____"

**(1)** How beautiful were this painting!

**(2)** **What a beautiful painting this is! ✔**

**(3)** What beautiful painting this was!

**(4)** What painting beautiful is this.

---

**Q.144** Select the most appropriate ANTONYM of the underlined word in the given sentence.
The professor obscured the perplexing concepts of quantum mechanics with remarkable clarity.

**(1)** concealed

**(2)** eluded

**(3)** **elucidated ✔**

**(4)** gestured

---

**Q.145** In the following question, a statement has been given with highlighted text. You are required to replace the text with a correct Idiomatic expression from the options.
When dealing with setbacks, always remember that hard work or suffering is necessary to make progress or succeed, so stay patient and persistent.

**(1)** a watched pot never boils
**(2)** every cloud has a silver lining
**(3)** make hay while the sun shines
**(4)** **no pain, no gain ✔**

---

**Q.146** Find the ANTONYM of "VERACITY" from the given sentence.
The journalist was accused of falsehood, manipulation, and exaggeration in the controversial article.

**(1)** Manipulation
**(2)** Controversial
**(3)** **Falsehood ✔**
**(4)** Exaggeration

---

**Q.147** Select the correct active voice form of the given sentence.
The presentation for the class was prepared by the teacher.

**(1)** The teacher prepares the presentation for the class.
**(2)** The teacher had prepared the presentation for the class.
**(3)** **The teacher prepared the presentation for the class. ✔**
**(4)** The teacher is preparing the presentation for the class.

---

**Q.148** Choose the antonym of the underlined word in the sentence below.
Her generous donation helped many people in need.

**(1)** kind
**(2)** **stingy ✔**
**(3)** wealthy
**(4)** helpful

---

**Q.149** Choose the sentence that uses the correct present tense.

**(1)** The company expand rapidly these days.
**(2)** The company has been expanded rapidly these days.
**(3)** **The company is expanding rapidly these days. ✔**
**(4)** The company has expanded rapidly these days.

---

**Q.150** In the question given below, a part of the sentence has been underlined. Choose the option which best replaces the underlined text with the correct idiom.
The manager ignored the warning signs, which was an action full of risk.

**(1)** facing the music
**(2)** kicking the bucket
**(3)** **playing with fire ✔**
**(4)** breaking the ice

---

**Q.151** Select the option that expresses the given sentence in passive voice.
The chef is preparing the meal.

**(1)** The meal was prepared by the chef.
**(2)** **The meal is being prepared by the chef. ✔**
**(3)** The chef has prepared the meal.
**(4)** The chef prepared the meal.

---

**Q.152** Read the sentence carefully and identify the misspelled word. Choose the correct spelling from the given options.
The old man's reputation for wisdom and reliablity had spread across the coast.

**(1)** reputation – reputaion
**(2)** **reliablity – reliability ✔**
**(3)** coast – coarst
**(4)** wisdom – wisdome

---

**Q.153** Rectify the sentence by selecting the correct spelling from the options.
The rocket was propelled by a powerful commbusion chamber that mixed fuel and oxidizer.

**(1)** combusston
**(2)** combuston
**(3)** combustian
**(4)** **combustion ✔**

---

**Q.154** Select the most appropriate ANTONYM of the word 'Inclined' in the given sentence.
Though reluctant to leave their familiar comforts, the family embarked on a daring adventure, embracing the unknown with a mix of apprehension and excitement.

**(1)** Embarked
**(2)** Embracing
**(3)** **Reluctant ✔**
**(4)** Apprehension

---

**Q.155** Select the most appropriate idiom that can substitute the underlined segment in the given sentence.
He knew he had to make a difficult decision, even though it would upset some people.

**(1)** **bite the bullet ✔**
**(2)** keep his options open
**(3)** bend the rules
**(4)** throw in the towel

---

**Q.156** Select the most appropriate central theme of the given passage.

**(1)** Replacing electronic screens with houseplants drastically improves focus.
**(2)** Houseplants are difficult to maintain in urban environments.
**(3)** **Integrating plants into indoor spaces fulfills a deep psychological need for nature. ✔**
**(4)** Everyone should move out of cities and live in the forest.

---

**Q.157** According to the author, what is "biophilia"?

**(1)** A subconscious desire to decorate small spaces.

**(2)** **An innate human affinity for the natural world. ✔**

**(3)** An intense fear of concrete environment for small spaces.

**(4)** The process by which plants turn carbon dioxide into oxygen.

**Q.158** Select the most appropriate title for this passage.

**(1)** The Science of Photosynthesis and its use

**(2)** **The Psychological Solace of Houseplants ✔**

**(3)** Decorating Your Apartment on a Budget

**(4)** How to Keep Your Fern Alive in Modern times

**Q.159** What does the author imply by calling the presence of houseplants a "subconscious rebellion"?

**(1)** Decorating is inherently a political act everywhere.

**(2)** Plants will eventually overgrow and destroy apartment buildings.

**(3)** **It is a quiet way of fighting back against unnatural, concrete living spaces. ✔**

**(4)** People buy plants specifically to anger their landlords.

**Q.160** Select the most appropriate synonym of the word 'agitated' from the given passage.

**(1)** Innate

**(2)** Constant

**(3)** Cramped

**(4)** **Frantic ✔**

## Hindi Language and Comprehension

**Q.161** दिए गए वाक्य में उचित कारक का चयन करके रिक्त स्थान की पूर्ति करें - अजंता और एलोरा -------गुफाएँ भारत के महाराष्ट्र राज्य के औरंगाबाद में स्थित हैं।

**(1)** **की ✔**

**(2)** से

**(3)** पर

**(4)** ने

**Q.162** दिये गये वाक्यों में से कौन सा वाक्य शुद्ध है?

**(1)** लोगों को काफी चौंका दिया है आज छपे हुआ मुख्य समाचारों ने।

**(2)** समाचार जो आज छपे हैं मुख्य उन्होंने लोगों को चौंका दिया काफी।

**(3)** **आज छपे हुए मुख्य समाचारों ने लोगों को काफी चौंका दिया है। ✔**

**(4)** आज जो मुख्य समाचार छपे काफी चौंका उन्होंने लोगों को दिया है।

**Q.163** निम्नलिखित वाक्य के रिक्त स्थान में उचित विशेषण की पूर्ति कीजिए- 'कवियों में तुलसीदास _____ हैं।'

**(1)** पाँच

**(2)** **श्रेष्ठ ✔**

**(3)** दीर्घतर

**(4)** सातवें

**Q.164** निम्नलिखित वाक्य में शुद्ध वाक्य का चयन करें-

**(1)** 'श्रावकाचार' को हिंदी की माना जाता है प्रथम रचना देवसेन कृत।

**(2)** कृत 'श्रावकाचार' देवसेन को प्रथम रचना माना जाता है हिंदी की।

**(3)** हिंदी की माना जाता है देवसेन कृत 'श्रावकाचार' को प्रथम रचना।

**(4) देवसेन कृत 'श्रावकाचार' को हिंदी की प्रथम रचना माना जाता है। ✔**

---

**Q.165** निम्नलिखित वाक्य में उचित क्रिया-विशेषण का प्रयोग कर वाक्य पूर्ण करें- 'रोज उठना चाहिए।'

**(1)** तनिक

**(2) सवेरे ✔**

**(3)** पा

**(4)** शायद

---

**Q.166** निम्नलिखित विकल्पों में से कौन-सा वाक्य पूर्ण रूप से शुद्ध है ?

**(1) दोनों योद्धा आपस में गुत्थम-गुत्था हो गए। ✔**

**(2)** दोनों योद्धा आपस से गुत्थम-गुत्था हो गए।

**(3)** दोनों योद्धा आपस में गुत्थम-गुत्था हो गया।

**(4)** दोनों योद्धा आपस में गुत्थम-गुत्था से गए।

---

**Q.167** दिए गए वाक्य में उचित प्रेरणार्थक क्रिया का चयन करके रिक्त स्थान की पूर्ति करें – श्रीमद्भागवत एक धार्मिक ग्रंथ है जो भगवान कृष्ण के प्रेम और भक्ति के माध्यम से मोक्ष प्राप्त करने का मार्ग -------है।

**(1) दिखलाता ✔**

**(2)** बनवाता

**(3)** पढ़वाता

**(4)** बनाती

---

**Q.168** सर्वोचित कारक चिह्न से दिए गए वाक्य का रिक्त स्थान पूर्ण करें— तुम अपने सारे काम समय ..... पूरे करोगे।

**(1)** द्वारा

**(2) पर ✔**

**(3)** को

**(4)** के लिए

---

**Q.169** निम्नलिखित वाक्य के रिक्त स्थान में उचित क्रिया की पूर्ति कीजिए - 'नरेन्द्र _____खेलेगा।'

**(1)** मरना

**(2)** बजाकर

**(3) पढ़कर ✔**

**(4)** पिटाकर

---

**Q.170** रिक्त स्थान में उपयुक्त पूर्वकालिक क्रिया के प्रयोग से वाक्य पूर्ण करें।

बच्चे दूध ..... सो गए।

**(1)** पीते-पीते

**(2)** खाए

**(3) पीकर ✔**

**(4)** पिए

---

**Q.171** निम्नलिखित विकल्पों में से कौन-सा वाक्य क्रम सही है ?

**(1)** मोहन जो पुस्तक चाहता था मिल गई उसे वह।

**(2)** चाहता था मोहन जो पुस्तक वह उसे मिल गई।

**(3) मोहन जो पुस्तक चाहता था वह उसे मिल गई। ✔**

**(4)** मिल गई वह उसे जो पुस्तक चाहता था मोहन।

---

**Q.172** जो इंद्रियों द्वारा न जाना जा सके-- के लिए एक शब्द चुनें।

**(1)** इंद्रजीत

**(2)** अलौकिक

**(3)** ऐंद्रिक

**(4) अगोचर ✔**

---

**Q.173** "राघव ..... सुजाता के मामा के पास आता है " कालवाचक क्रिया-विशेषण का प्रयोग कर वाक्य को पूर्ण कीजिए

**(1) प्रतिदिन ✔**

**(2)** केवल

**(3)** धीरे-धीरे

**(4)** यहाँ

---

**Q.174** दिये गये विकल्पों में से सही कारक चुनकर वाक्य को सार्थक ढंग से पूरा करें- वह दिल्ली ..... वापस घर आ रहा है।

**(1)** द्वारा

**(2)** को

**(3)** में

**(4) से ✔**

---

**Q.175** निम्नलिखित वाक्य में शुद्ध वाक्य का चयन करें-

**(1)** खंड चार हैं बीसलदेवरासो में।

**(2)** खंड है चार बीसलदेवरासो में।

**(3)** चार हैं खंड में बीसलदेवरासो ।

**(4) बीसलदेवरासो में चार खंड हैं। ✔**

---

**Q.176** आज के युग को किसका युग बताया गया है?

**(1)** कृषि और व्यापार का

**(2) विज्ञान और प्रौद्योगिकी का ✔**

**(3)** कला और संस्कृति का

**(4)** युद्ध और शांति का

---

**Q.177** विज्ञान ने हमें किसमें मदद की है?

**(1) ब्रह्मांड के रहस्यों को समझने में ✔**

**(2)** अधिक धन कमाने में

**(3)** विभिन्न प्रकार के प्रदूषण फैलाने में

**(4)** केवल युद्ध लड़ने में

---

**Q.178** प्रौद्योगिकी ने मानव जीवन को किस स्वरूप में ढाल दिया है?

**(1)** अधिक अकेला

**(2) सरल और अधिक आरामदायक ✔**

**(3)** दुविधाजनक और खतरनाक

**(4)** अधिक जटिल और कठिन

---

**Q.179** चिकित्सा के क्षेत्र में प्रगति का क्या परिणाम हुआ है?

**(1)** बीमारियों में वृद्धि हुई है।

**(2)** केवल अस्पताल बढ़ गए हैं सुविधाएँ नहीं।

**(3) जानलेवा बीमारियों का इलाज संभव हुआ। ✔**

**(4)** लोग बीमार रहने लगे हैं और औसत आयु घट गई है।

---

**Q.180** मूलत: विज्ञान और प्रौद्योगिकी का उपयोग किसके लिए होना चाहिए?

**(1)** युद्ध और पृथ्वी के विनाश के लिए

**(2) मानव कल्याण और शांतिपूर्ण उद्देश्यों के लिए ✔**

**(3)** पर्यावरण को नुकसान पहुँचाने के लिए

**(4)** अमीरों के व्यक्तिगत लाभ के लिए

---

**Q.181** निम्नलिखित विकल्पों में से लोकोक्ति के सही अर्थ की पहचान कीजिए।

'घर-घर शादी घर-घर ग़म'

**(1)** खुशी से झूमना

**(2)** सम्पूर्ण वातावरण का उल्लासमय होना

**(3) सुख-दु:ख का साथ होता है ✔**

**(4)** बधाई भेजना

---

**Q.182** ..... को कार्य में सफलता मिलती है।

वाक्य के रिक्त स्थान के लिए उपयुक्त विशेषण कौन सा है ?

**(1)** दुष्ट

**(2)** दानी

**(3)** पापी

**(4) उद्यमी ✔**

---

**Q.183** निम्नलिखित विकल्पों में से उचित विकल्प का चयन कर वाक्य पूर्ण करें – .....हवा मादकता उत्पन्न कर रही है।

**(1) ठण्डी-ठण्डी ✔**

**(2)** जोर-जोर

**(3)** तेज-तेज

**(4)** हल्की-हल्की

---

**Q.184** अधजल गगरी छलकत जाय - लोकोक्ति का सही अर्थ क्या है?

**(1) डींग हाँकना ✔**

**(2)** आधे जल से ही काम चलाना

**(3)** कठिन परिस्थिति में सहायता करना

**(4)** हर हाल में संतोष होना

---

**Q.185** 'काम को और खाने को और' लोकोक्ति का सही अर्थ होगा -

**(1)** काम का नाम लेने से ही जान चली जाती है ।

**(2)** काम करने से ही आता है ।

**(3)** जो खाने के सिवा कुछ नहीं करता ।

**(4) परिश्रम कोई और करे लाभ किसी और को मिले । ✔**

---

Quick Sarkari

**Q.186** दिए गए विकल्पों में से 'पड़ोसी ' का तत्सम शब्द चुनिए ।

**(1)** पिष्टिका

**(2)** परिकूट

**(3) प्रतिवेशी ✔**

**(4)** प्रतिवेश

---

**Q.187** 'पत्थर' का तत्सम है-

**(1) प्रस्तर ✔**

**(2)** पर्पट

**(3)** प्रहार

**(4)** तीक्ष्ण

---

**Q.188** निम्न लोकोक्ति का सही अर्थ चुनिए।

आगे कुआं, पीछे खाई

**(1) हर तरफ मुसीबत ✔**

**(2)** खाई में गिर जाना

**(3)** कुएं में गिर जाना

**(4)** हर तरफ खुशहाली

---

**Q.189** इनमें से कौन गाँव का तत्सम रूप है?

**(1)** ग्रामीण

**(2)** ग्रहण

**(3) ग्राम ✔**

**(4)** गौ

---

**Q.190** नीचे दिए गए वाक्य के किस भाग में त्रुटि है ?

'श्याम मेरा घनिष्ट मित्र है।'

**(1)** श्याम

**(2)** मेरा

**(3) घनिष्ट ✔**

**(4)** मित्र है

---

**Q.191** दिए गए वाक्य के किस भाग में त्रुटि है?

एक योदा का पराक्रम उसकी तलवार की धार से नहीं, बल्कि उसके आत्मबल से आँका जाता है।

**(1)** बल्कि

**(2)** आत्मबल

**(3)** पराक्रम

**(4) योदा ✔**

---

**Q.192** निम्नलिखित विकल्पों में से दिए गए मुहावरा के सही अर्थ की पहचान कीजिए।

'डंडे की चोट पर कहना'

**(1)** दिखावटी कार्य करना

**(2)** पशुवत व्यवहार करना

**(3) खुले आम कह देना ✔**

**(4)** शक्ति प्रदर्शन करना

---

QuickSarkari.com | WhatsApp Channel | Telegram: t.me/quick_sarkari

**Q.193** दिए गए वाक्य में उचित क्रिया का चयन करके रिक्त स्थान की पूर्ति करें – छात्र कल्याण परिषद विद्यार्थियों के लिए कल्याण तथा निर्देशन सेवाओं का ---------है।

**(1)** प्रसारण करती

**(2)** प्रकाशन करती

**(3) संचालन करती ✔**

**(4)** आयोजन करती

---

**Q.194** निम्न लोकोक्ति का सही अर्थ अंकित कीजिए।
एक तो करेला, ऊपर से नीम चढ़ा

**(1)** अपने रंग महल में बहादुरी दिखाना

**(2)** अपने बाग बगीचे में बहादुरी दिखाना

**(3)** अपनी पत्नी संग बहादुरी दिखाना

**(4) एक बुराई के साथ दूसरी बुराई का जुड़ना ✔**

---

**Q.195** 'दुर-दुर करना' मुहावरे का सही अर्थ है -

**(1)** ठीक करना

**(2)** प्रसन्न होना

**(3)** कठिन बनाना

**(4) अपमानसहित दूर भागना ✔**

---

**Q.196** दिए गए गद्यांश के लिए सर्वाधिक उपयुक्त शीर्षक चुनिए :

**(1)** सूचना क्रांति की दुनिया

**(2)** सूचना क्रांति का संजाल

**(3) सूचना क्रांति की सीमाएं ✔**

**(4)** सूचना क्रांति के उपकार

---

**Q.197** दिए गए गद्यांश में प्रयुक्त 'मिसइंफार्मेशन' शब्द का क्या अर्थ है?

**(1)** स्वेच्छा से गलत सूचना देना

**(2) जानबूझकर गलत सूचना देना ✔**

**(3)** दबाव में गलत सूचना देना

**(4)** अनजाने में गलत सूचना देना

---

**Q.198** दिए गए गद्यांश में अभिव्यक्त भाव क्या है?

**(1)** सूचना से अलग रहने का भाव

**(2)** सूचना को ही सत्य समझने का भाव

**(3) सूचना के प्रति सचेत रहने का भाव ✔**

**(4)** सूचना के प्रति उत्साहित होने का भाव

---

**Q.199** दिए गए गद्यांश में प्रयुक्त 'अभूतपूर्व' शब्द का क्या अर्थ है?

**(1)** जो कभी नहीं हुआ

**(2)** जो कभी नहीं होगा

**(3)** जो पहले भी हो चुका

**(4) जो पहले कभी नहीं हुआ ✔**

---

QuickSarkari.com | WhatsApp Channel | Telegram: t.me/quick_sarkari

**Q.200** दिए गए गद्यांश की संरचना किस प्रकार की है?

**(1)** संकेतात्मक

**(2)** काव्यात्मक

**(3)** संस्मरणात्मक

**(4) विवरणात्मक ✔**

## Answer Key / उत्तर कुंजी

| | | | | | | | | | | | | | | |
|---|---|---|---|---|---|---|---|---|---|---|---|---|---|---|
| 1 2 | 2 1 | 3 4 | 4 4 | 5 3 | 6 4 | 7 4 | 8 1 | 9 3 | 10 1 | 11 2 | 12 3 | 13 3 | 14 2 | 15 4 |
| 16 2 | 17 3 | 18 4 | 19 4 | 20 2 | 21 2 | 22 2 | 23 4 | 24 4 | 25 4 | 26 2 | 27 4 | 28 4 | 29 3 | 30 1 |
| 31 2 | 32 4 | 33 1 | 34 4 | 35 2 | 36 1 | 37 1 | 38 3 | 39 1 | 40 1 | 41 2 | 42 1 | 43 4 | 44 4 | 45 1 |
| 46 2 | 47 2 | 48 3 | 49 2 | 50 4 | 51 2 | 52 3 | 53 2 | 54 1 | 55 3 | 56 1 | 57 4 | 58 3 | 59 1 | 60 3 |
| 61 3 | 62 3 | 63 1 | 64 1 | 65 3 | 66 3 | 67 2 | 68 1 | 69 4 | 70 2 | 71 4 | 72 3 | 73 4 | 74 2 | 75 3 |
| 76 3 | 77 3 | 78 1 | 79 3 | 80 2 | 81 2 | 82 2 | 83 1 | 84 2 | 85 1 | 86 2 | 87 3 | 88 4 | 89 1 | 90 4 |
| 91 1 | 92 3 | 93 4 | 94 4 | 95 2 | 96 4 | 97 4 | 98 2 | 99 3 | 100 3 | 101 3 | 102 3 | 103 1 | 104 2 | 105 3 |
| 106 4 | 107 3 | 108 1 | 109 1 | 110 2 | 111 3 | 112 4 | 113 3 | 114 4 | 115 2 | 116 2 | 117 4 | 118 3 | 119 3 | 120 2 |
| 121 1 | 122 2 | 123 2 | 124 4 | 125 1 | 126 3 | 127 2 | 128 3 | 129 2 | 130 3 | 131 3 | 132 1 | 133 2 | 134 2 | 135 2 |
| 136 4 | 137 4 | 138 2 | 139 3 | 140 1 | 141 3 | 142 2 | 143 2 | 144 3 | 145 4 | 146 3 | 147 3 | 148 2 | 149 3 | 150 3 |
| 151 2 | 152 2 | 153 4 | 154 3 | 155 1 | 156 3 | 157 2 | 158 2 | 159 3 | 160 4 | 161 1 | 162 3 | 163 2 | 164 4 | 165 2 |
| 166 1 | 167 1 | 168 2 | 169 3 | 170 3 | 171 3 | 172 4 | 173 1 | 174 4 | 175 4 | 176 2 | 177 1 | 178 2 | 179 3 | 180 2 |
| 181 3 | 182 4 | 183 1 | 184 1 | 185 4 | 186 3 | 187 1 | 188 1 | 189 3 | 190 3 | 191 4 | 192 3 | 193 3 | 194 4 | 195 4 |
| 196 3 | 197 2 | 198 3 | 199 4 | 200 4 | | | | | | | | | | |

Quick Sarkari

## Thank you for studying with QuickSarkari!

Get the latest Sarkari Naukri notifications, admit cards, results, answer keys and free previous-year papers first - follow us on WhatsApp and Telegram.

**Visit www.quicksarkari.com**

**Join our WhatsApp Channel**

https://whatsapp.com/channel/0029VaxxbrREquiPoXTWM229

**Join our Telegram Channel**

https://t.me/quick_sarkari

*Share this PDF with your friends preparing for DSSSB exams.*