Quick Sarkari

DSSSB PREVIOUS YEAR PAPER WITH ANSWER KEY

DSSSB Forest Guard

12 July 2026 · Shift 3

डीएसएसएसबी वन रक्षक – 12 जुलाई 2026, शिफ्ट 3 का प्रश्न पत्र, उत्तर कुंजी सहित

200	120 min	1 / −0.25	EN + HI
Questions / प्रश्न	Duration / समय	Marks per Q / अंक	Language / भाषा

Sections: General Intelligence and Reasoning Ability, General Awareness, Arithmetical and Numerical Ability, English Language and Comprehension, Hindi Language and Comprehension

INSIDE THIS PDF / इस PDF में

Question Paper in English + Hindi with Answer Key (correct option marked in green) + answer table Page 2–44
प्रश्न पत्र अंग्रेज़ी + हिंदी में, उत्तर कुंजी सहित (सही विकल्प हरे रंग में) + उत्तर तालिका

HOW TO USE THIS PAPER / इस पेपर का उपयोग कैसे करें

1. Attempt the paper first as a timed online mock test (link below).
   पहले नीचे दिए लिंक से इसे टाइमर के साथ ऑनलाइन मॉक टेस्ट के रूप में हल करें।
2. Check your score, section-wise analysis and solutions online.
   ऑनलाइन अपना स्कोर, खंड-वार विश्लेषण और हल देखें।
3. Use this PDF for revision. Correct answers are shown in green.
   दोहराने के लिए इस PDF का उपयोग करें। सही उत्तर हरे रंग में दिए गए हैं।

Attempt this paper as a FREE online mock test

इस पेपर को फ्री ऑनलाइन मॉक टेस्ट के रूप में हल करें – टाइमर, स्कोर और हल के साथ

https://quicksarkari.com/dsssb-forest-guard-12-july-2026-shift-3-mock-test/

All DSSSB Forest Guard papers and mock tests: **quicksarkari.com/dsssb-mock-test/#forest-guard**

Join WhatsApp Channel | Join Telegram Channel

DSSSB Forest Guard – Question Paper (English + Hindi)

DSSSB वन रक्षक – प्रश्न पत्र (अंग्रेज़ी + हिंदी)

Exam held on 12 July 2026, Shift 3 · 200 questions · correct answers marked ✔ in green
परीक्षा तिथि 12 जुलाई 2026, शिफ्ट 3 · 200 प्रश्न · सही उत्तर हरे रंग में ✔ से चिह्नित

> The official paper for this shift was in English. The Hindi version of each question is a translation prepared by QuickSarkari; the language-section questions are shown as asked.
> इस शिफ्ट का आधिकारिक प्रश्न पत्र अंग्रेज़ी में था। प्रत्येक प्रश्न का हिंदी संस्करण QuickSarkari द्वारा तैयार किया गया अनुवाद है; भाषा खंड के प्रश्न मूल रूप में दिए गए हैं।

General Intelligence and Reasoning Ability

Q.1 Which of the following letter-clusters should replace # and % so that the pattern and relationship followed between the letter-cluster pair on the left side of :: is the same as that on the right side of :: ?
: LHJ :: MIK : %

निम्नलिखित में से कौन-से अक्षर-समूह # और % के स्थान पर आने चाहिए ताकि :: के बाईं ओर के अक्षर-समूह युग्म के बीच जो पैटर्न और संबंध है, वही :: के दाईं ओर भी हो?
: LHJ :: MIK : %

(1) # = FBF % = OZQ
(2) **# = FBD % = SOQ ✔**
(3) # = IOD % = SOP
(4) # = FIN % = OQQ

Q.2 Six individuals, S, T, V, W, X, and Y, reside on six different floors of a building numbered from 1 (lowest) to 6 (highest). Exactly two people live between X and Y. V is the only person who lives on a floor above T. S lives on an even-numbered floor. X lives on the lowest floor. How many people live between W and V?

छः व्यक्ति, S, T, V, W, X और Y, एक इमारत की छः अलग-अलग मंजिलों पर रहते हैं, जिनकी संख्या 1 (सबसे नीचे) से 6 (सबसे ऊपर) तक है। X और Y के बीच ठीक दो व्यक्ति रहते हैं। V एकमात्र व्यक्ति है जो T से ऊपर की मंजिल पर रहता है। S एक सम संख्या वाली मंजिल पर रहता है। X सबसे नीचे की मंजिल पर रहता है। W और V के बीच कितने व्यक्ति रहते हैं?

(1) One / एक
(2) None / कोई नहीं
(3) Three / तीन
(4) **Two / दो ✔**

Q.3 DAM is related to GDP in a certain way based on the English alphabetical order. In the same way, HIT is related to KLW. To which of the given options is ETF related, following the same logic?

अंग्रेज़ी वर्णमाला क्रम के आधार पर DAM एक निश्चित प्रकार से GDP से संबंधित है। उसी प्रकार, HIT, KLW से संबंधित है। समान तर्क का अनुसरण करते हुए, ETF दिए गए विकल्पों में से किससे संबंधित है?

(1) HXI
(2) HXJ
(3) **HWI ✔**
(4) HWJ

Q.4 In a code language, 'GATE' is coded as 'IBVF' and 'LOCK' is coded as 'NPEL'. How will 'DOOR' be coded in the same language?

एक कूट भाषा में, 'GATE' को 'IBVF' के रूप में कूटबद्ध किया जाता है और 'LOCK' को 'NPEL' के रूप में कूटबद्ध किया जाता है। उसी भाषा में 'DOOR' को किस प्रकार कूटबद्ध किया जाएगा?

(1) FPQS ✔

(2) FQQR

(3) EPPQ

(4) EQPQ

Q.5 Seven boxes A, B, C, D, E, F and G are kept one over the other but not necessarily in the same order. Only two boxes are kept below E. Only one box is kept above F. Only one box is kept between F and B. D is kept immediately above C. G is kept at some place below A.

How many boxes are kept below B?

सात बक्से A, B, C, D, E, F और G एक के ऊपर एक रखे गए हैं, लेकिन जरूरी नहीं कि इसी क्रम में हों।

E के नीचे केवल दो बक्से रखे गए हैं। F के ऊपर केवल एक बक्सा रखा गया है। F और B के बीच केवल एक बक्सा रखा गया है। D को C के ठीक ऊपर रखा गया है। G को A के नीचे किसी स्थान पर रखा गया है।

B के नीचे कितने बक्से रखे गए हैं?

(1) 2

(2) 3 ✔

(3) 1

(4) 4

Q.6 Refer to the following letter series and answer the question that follows. Counting to be done from left to right only.

(Left) W F P E V N D K S U J E M R L C T G H Q B (Right)

How many such consonants are there which are immediately preceded by a vowel and also immediately followed by a vowel?

निम्नलिखित अक्षर श्रृंखला को देखें और नीचे दिए गए प्रश्न का उत्तर दें। गिनती केवल बाएँ से दाएँ की जानी है।

(बाएँ) W F P E V N D K S U J E M R L C T G H Q B (दाएँ)

ऐसे कितने व्यंजन हैं जिनके ठीक पहले एक स्वर है और ठीक बाद भी एक स्वर है?

(1) Three / तीन

(2) One / एक ✔

(3) Zero / शून्य

(4) Two / दो

Q.7 In a certain code language, A x B means 'A is the mother of B'
A - B means 'A is the brother of B'
A + B means 'A is the wife of B'
A = B means ' A is the father of B'
Based on the above, how is C related to Y if 'C x G – I = R + Y' ?
एक निश्चित कूट भाषा में, A x B का अर्थ है 'A, B की माता है'
A - B का अर्थ है 'A, B का भाई है'
A + B का अर्थ है 'A, B की पत्नी है'
A = B का अर्थ है 'A, B का पिता है'
उपर्युक्त के आधार पर, यदि 'C x G – I = R + Y' है, तो C, Y से किस प्रकार संबंधित है?

(1) Wife's father's sister / पत्नी के पिता की बहन
(2) Wife's mother / पत्नी की माता
(3) **Wife's father's mother / पत्नी के पिता की माता ✔**
(4) Father's mother / पिता की माता

Q.8 In a certain code language, A + B means 'A is the sister of B'
A – B means 'A is the brother of B'
A x B means 'A is the mother of B'
A ÷ B means 'A is the father of B'
If 'N x W + M – O x J', then how is N related to J?
एक निश्चित कूट भाषा में, A + B का अर्थ है 'A, B की बहन है'
A – B का अर्थ है 'A, B का भाई है'
A x B का अर्थ है 'A, B की माता है'
A ÷ B का अर्थ है 'A, B का पिता है'
यदि 'N x W + M – O x J' है, तो N, J से किस प्रकार संबंधित है?

(1) Father's father / पिता के पिता
(2) **Mother's mother / माता की माता ✔**
(3) Mother's father / माता के पिता
(4) Father's mother / पिता की माता

Q.9 Study the five, three-digit numbers given below and answer the question that follows.
(Left) 784 643 426 745 249 (Right)
(For example, 697 – first digit = 6, second digit = 9 and third digit = 7)
If 2 is added to the first digit of every number, then in how many numbers will the first digit be exactly divisible by the second digit?
नीचे दी गई तीन अंकों की पाँच संख्याओं का अध्ययन करें और नीचे दिए गए प्रश्न का उत्तर दें।
(बाएँ) 784 643 426 745 249 (दाएँ)
(उदाहरण के लिए, 697 – पहला अंक = 6, दूसरा अंक = 9 और तीसरा अंक = 7)
यदि प्रत्येक संख्या के पहले अंक में 2 जोड़ दिया जाए, तो कितनी संख्याओं में पहला अंक, दूसरे अंक से पूर्णतः विभाज्य होगा?

(1) Two / दो
(2) One / एक
(3) None / कोई नहीं
(4) **Three / तीन ✔**

Q.10 This question is based on the following words RUM GET NOW PAY In each of the words, each vowel is changed to the letter immediately following it in the English alphabetical order and each consonant is changed to the letter immediately preceding it in the English alphabetical order. In how many letter-clusters thus formed, will no vowel appear?

यह प्रश्न निम्नलिखित शब्दों पर आधारित है RUM GET NOW PAY प्रत्येक शब्द में, प्रत्येक स्वर को अंग्रेज़ी वर्णमाला क्रम में उसके ठीक बाद वाले अक्षर में बदल दिया जाता है और प्रत्येक व्यंजन को अंग्रेज़ी वर्णमाला क्रम में उसके ठीक पहले वाले अक्षर में बदल दिया जाता है। इस प्रकार बने कितने अक्षर-समूहों में कोई स्वर नहीं होगा?

(1) Four / चार
(2) Two / दो
(3) One / एक
(4) **Three / तीन ✔**

Q.11 Seven friends O, P, Q, R, W, X and Y are sitting around a circular table facing the center of the table. Only one person sits between R and Y when counted from the left of Y. W sits third to the right of X. P sits third to the left of Q. W sits to the immediate right of P. O is not an immediate neighbor of P. Who sits third to the left of R?

सात मित्र O, P, Q, R, W, X और Y एक वृत्ताकार मेज के चारों ओर मेज के केंद्र की ओर मुख करके बैठे हैं। Y के बाएँ से गिनने पर R और Y के बीच केवल एक व्यक्ति बैठा है। W, X के दाएँ से तीसरे स्थान पर बैठा है। P, Q के बाएँ से तीसरे स्थान पर बैठा है। W, P के ठीक दाएँ बैठा है। O, P का निकटतम पड़ोसी नहीं है। R के बाएँ से तीसरे स्थान पर कौन बैठा है?

(1) **W ✔**
(2) Q
(3) P
(4) O

Q.12 Seven individuals, R, S, T, V, W, X, and Y, are seated in a straight line facing north. T occupies the extreme left end of the line. Exactly two people are seated between T and V. S is seated second to the right of V, and Y is seated immediately to the left of R. W is an immediate neighbour of V. How many people are seated between W and X?

सात व्यक्ति, R, S, T, V, W, X और Y, उत्तर की ओर मुख करके एक सीधी पंक्ति में बैठे हैं। T पंक्ति के बाएँ छोर पर बैठा है। T और V के बीच ठीक दो व्यक्ति बैठे हैं। S, V के दाएँ से दूसरे स्थान पर बैठा है, और Y, R के ठीक बाएँ बैठा है। W, V का निकटतम पड़ोसी है। W और X के बीच कितने व्यक्ति बैठे हैं?

(1) Three / तीन
(2) None / कोई नहीं
(3) Two / दो
(4) **One / एक ✔**

Q.13 Refer to the following letter series and answer the question. Counting to be done from left to right only.
(Left) N L E S A S Z L J K R W Q U W Y D K L Q S Z A H S Q (Right)
How many letters are there in the English alphabetical series between the letter which is sixth from the left end and fifth from the right end of the series?

निम्नलिखित अक्षर श्रृंखला को देखें और प्रश्न का उत्तर दें। गिनती केवल बाएँ से दाएँ की जानी है।
(बाएँ) N L E S A S Z L J K R W Q U W Y D K L Q S Z A H S Q (दाएँ)
अंग्रेज़ी वर्णमाला श्रृंखला में, उस अक्षर जो श्रृंखला के बाएँ छोर से छठा है और उस अक्षर जो दाएँ छोर से पाँचवाँ है, के बीच कितने अक्षर हैं?

(1) Seven / सात
(2) **Six / छः ✔**
(3) Eight / आठ
(4) Nine / नौ

Q.14 Each of Abhay, Billu, Falak, Geet, Manish, Neha and Pihu play a game on a different day of a week starting from Monday and ending on Sunday of the same week. Manish plays the game on Friday. Only one person plays between Manish and Billu, but Billu does not play on Sunday. Abhay plays immediately before Neha, but Neha does not play on Sunday. Falak plays immediately after Geet. On which day does Pihu play the game?

अभय, बिल्लू, फलक, गीत, मनीष, नेहा और पीहू में से प्रत्येक एक ही सप्ताह के सोमवार से शुरू होकर रविवार को समाप्त होने वाले सप्ताह के एक अलग दिन एक खेल खेलता है। मनीष शुक्रवार को खेल खेलता है। मनीष और बिल्लू के बीच केवल एक व्यक्ति खेलता है, लेकिन बिल्लू रविवार को नहीं खेलता है। अभय, नेहा से ठीक पहले खेलता है, लेकिन नेहा रविवार को नहीं खेलती है। फलक, गीत के ठीक बाद खेलता है। पीहू किस दिन खेल खेलती है?

(1) Thursday / गुरुवार ✔

(2) Wednesday / बुधवार

(3) Sunday / रविवार

(4) Monday / सोमवार

Q.15 Refer to the following letter, symbol series and answer the question. Counting to be done from left to right only.

(Left) S K V # ^ X X D \ U N J ? S @ X U / ? (Right)

How many such symbols are there each of which is immediately preceded by a letter and also immediately followed by a letter?

निम्नलिखित अक्षर, प्रतीक श्रृंखला को देखें और प्रश्न का उत्तर दें। गिनती केवल बाएँ से दाएँ की जानी है।

(बाएँ) S K V # ^ X X D \ U N J ? S @ X U / ? (दाएँ)

ऐसे कितने प्रतीक हैं जिनमें से प्रत्येक के ठीक पहले एक अक्षर है और ठीक बाद भी एक अक्षर है?

(1) Three / तीन ✔

(2) Four / चार

(3) One / एक

(4) Two / दो

Q.16 Which of the following letter-clusters should replace # and % so that the pattern and relationship followed between the letter-cluster pair on the left side of :: is the same as that on the right side of :: ?

: BIQ :: JMS : %

निम्नलिखित में से कौन-से अक्षर-समूह # और % के स्थान पर आने चाहिए ताकि :: के बाईं ओर के अक्षर-समूह युग्म के बीच जो पैटर्न और संबंध है, वही :: के दाईं ओर भी हो?

: BIQ :: JMS : %

(1) # = CGL , % = KNU

(2) # = AHO , % = KNU ✔

(3) # = AHO , % = KMV

(4) # = HKM , % = KNU

Q.17 In a straight line arrangement of five people—M, N, O, P, and Q—if N is somewhere to the right of M but to the left of O, and P is at one end, which of the following must be true?

पाँच व्यक्तियों—M, N, O, P और Q—की एक सीधी पंक्ति व्यवस्था में, यदि N, M के दाईं ओर कहीं है लेकिन O के बाईं ओर है, और P एक छोर पर है, तो निम्नलिखित में से कौन-सा निश्चित रूप से सत्य है?

(1) N is at the left end / N बाएँ छोर पर है

(2) M is not at the rightmost position / M सबसे दाएँ स्थान पर नहीं है ✔

(3) P is to the right of Q / P, Q के दाईं ओर है

(4) O is at the right end / O दाएँ छोर पर है

QuickSarkari.com | WhatsApp Channel | Telegram: t.me/quick_sarkari

Q.18 Seven candidates, R, S, T, V, W, X, and Y, each appear for an examination on a different day of the same week from Monday to Sunday. No candidate has an exam scheduled before R, making R the first among all. Exactly three candidates have their exams scheduled between R and Y. Only one candidate has an exam scheduled between Y and V. W's exam is scheduled on Wednesday. T's exam is scheduled on a day after X's exam but before S's exam. On which day does T appear for the examination?

सात उम्मीदवार, R, S, T, V, W, X और Y, प्रत्येक एक ही सप्ताह के सोमवार से रविवार तक के एक अलग दिन एक परीक्षा में बैठते हैं। किसी भी उम्मीदवार की परीक्षा R से पहले निर्धारित नहीं है, जिससे R सभी में पहला है। R और Y के बीच ठीक तीन उम्मीदवारों की परीक्षाएँ निर्धारित हैं। Y और V के बीच केवल एक उम्मीदवार की परीक्षा निर्धारित है। W की परीक्षा बुधवार को निर्धारित है। T की परीक्षा X की परीक्षा के बाद के किसी दिन, लेकिन S की परीक्षा से पहले निर्धारित है। T किस दिन परीक्षा में बैठता है?

(1) Friday / शुक्रवार

(2) Thursday / गुरुवार ✔

(3) Saturday / शनिवार

(4) Tuesday / मंगलवार

Q.19 In a code language, 'CLOUD' is coded as OLCDU and 'FROST' as ORFTS. How will 'BLAZE' be coded in the same language?

एक कूट भाषा में, 'CLOUD' को OLCDU के रूप में और 'FROST' को ORFTS के रूप में कूटबद्ध किया जाता है। उसी भाषा में 'BLAZE' को किस प्रकार कूटबद्ध किया जाएगा?

(1) BALZE

(2) LABZE

(3) ALBEZ ✔

(4) ALBZE

Q.20 This question is based on the following words.
KOB LIB JAB HUN In each of the words, each vowel is changed to the letter immediately following it in the English alphabetical order and each consonant is changed to the letter immediately preceding it in the English alphabetical order. In how many letter-clusters thus formed, will no vowel appear?

यह प्रश्न निम्नलिखित शब्दों पर आधारित है।
KOB LIB JAB HUN प्रत्येक शब्द में, प्रत्येक स्वर को अंग्रेज़ी वर्णमाला क्रम में उसके ठीक बाद वाले अक्षर में बदल दिया जाता है और प्रत्येक व्यंजन को अंग्रेज़ी वर्णमाला क्रम में उसके ठीक पहले वाले अक्षर में बदल दिया जाता है। इस प्रकार बने कितने अक्षर-समूहों में कोई स्वर नहीं होगा?

(1) One / एक ✔

(2) Two / दो

(3) Three / तीन

(4) Zero / शून्य

Q.21 Based on the English alphabetical order, three of the following four letter cluster pairs are alike in a certain way and thus form a group. Which is the one that does not belong to that group?
(Note: The odd one out is not based on the number of consonants/vowels or their position in the letter cluster)

अंग्रेज़ी वर्णमाला क्रम के आधार पर, निम्नलिखित चार अक्षर-समूह युग्मों में से तीन किसी निश्चित प्रकार से एकसमान हैं और इस प्रकार एक समूह बनाते हैं। वह कौन-सा युग्म है जो उस समूह से संबंधित नहीं है?
(नोट: असंगत युग्म, व्यंजनों/स्वरों की संख्या या अक्षर-समूह में उनके स्थान पर आधारित नहीं है)

(1) ON–OQ ✔

(2) RQ–SR

(3) GF–HG

(4) BA–CB

Q.22 Which of the following letter-number clusters will replace the question mark (?) in the given series to make it logically complete?
TUY 88 VWA 96 XYC 104 ZAE 112 ?

दी गई श्रृंखला को तार्किक रूप से पूर्ण करने के लिए निम्नलिखित में से कौन-सा अक्षर-संख्या समूह प्रश्न चिह्न (?) के स्थान पर आएगा?
TUY 88 VWA 96 XYC 104 ZAE 112 ?

(1) BBF 119
(2) BDF 120
(3) BKU 119
(4) BCG 120 ✔

Q.23 Select the correct mirror image of the given figure when the mirror is placed at MN as shown below.

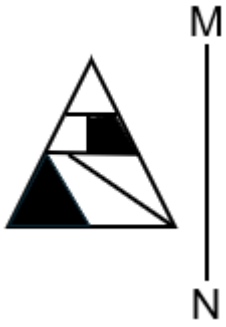

जब दर्पण को नीचे दर्शाए अनुसार MN पर रखा जाता है, तो दी गई आकृति के सही दर्पण प्रतिबिंब का चयन करें।

(1) 

(2) 

(3) 

(4) 
✔

QuickSarkari.com | WhatsApp Channel | Telegram: t.me/quick_sarkari

Q.24 Based on the English alphabetical order, three of the following four are alike in a certain way and thus form a group. Which is the one that does not belong to that group?
(Note: The odd one out is not based on the number of consonants/vowels or their position in the letter cluster)
अंग्रेज़ी वर्णमाला क्रम के आधार पर, निम्नलिखित चार में से तीन किसी निश्चित प्रकार से एकसमान हैं और इस प्रकार एक समूह बनाते हैं। वह कौन-सा है जो उस समूह से संबंधित नहीं है?
(नोट: असंगत, व्यंजनों/स्वरों की संख्या या अक्षर-समूह में उनके स्थान पर आधारित नहीं है)

(1) PQJ
(2) LMF
(3) MNG
(4) KNH ✔

Q.25 If '+' means '−', '−' means '×', '×' means '÷', '÷' means '+', then what will come in place of the question mark (?) in the following equation?
25 − 6 ÷ 4 + 12 × 3 = ?
यदि '+' का अर्थ '−' है, '−' का अर्थ '×' है, '×' का अर्थ '÷' है, '÷' का अर्थ '+' है, तो निम्नलिखित समीकरण में प्रश्न चिह्न (?) के स्थान पर क्या आएगा?
25 − 6 ÷ 4 + 12 × 3 = ?

(1) 154
(2) 158
(3) 150 ✔
(4) 140

Q.26 Based on the English alphabetical order, three of the following four are alike in a certain way and thus form a group. Which is the one that does not belong to that group?
(Note: The odd one out is not based on the number of consonants/vowels or their position in the letter-cluster.)
अंग्रेज़ी वर्णमाला क्रम के आधार पर, निम्नलिखित चार में से तीन किसी निश्चित प्रकार से एकसमान हैं और इस प्रकार एक समूह बनाते हैं। वह कौन-सा है जो उस समूह से संबंधित नहीं है?
(नोट: असंगत, व्यंजनों/स्वरों की संख्या या अक्षर-समूह में उनके स्थान पर आधारित नहीं है।)

(1) SWX ✔
(2) DGI
(3) ZCE
(4) MPR

Q.27 If '+' means '−', '−' means '×', '×' means '÷' and '÷' means '+', then what will come in place of the question mark (?) in the following equation?
9 − 189 × 9 ÷ 61 + 53 = ?
यदि '+' का अर्थ '−' है, '−' का अर्थ '×' है, '×' का अर्थ '÷' है और '÷' का अर्थ '+' है, तो निम्नलिखित समीकरण में प्रश्न चिह्न (?) के स्थान पर क्या आएगा?
9 − 189 × 9 ÷ 61 + 53 = ?

(1) 197 ✔
(2) 209
(3) 216
(4) 192

Q.28 Based on the English alphabetical order, three of the following four letter-cluster pairs are alike in a certain way and thus form a group. Which is the one that does not belong to that group? (Note: The odd man out is not based on the number of consonants/vowels or their position in the letter-cluster.)

अंग्रेज़ी वर्णमाला क्रम के आधार पर, निम्नलिखित चार अक्षर-समूह युग्मों में से तीन किसी निश्चित प्रकार से एकसमान हैं और इस प्रकार एक समूह बनाते हैं। वह कौन-सा युग्म है जो उस समूह से संबंधित नहीं है? (नोट: असंगत, व्यंजनों/स्वरों की संख्या या अक्षर-समूह में उनके स्थान पर आधारित नहीं है।)

(1) VU - YX

(2) RQ - UU ✔

(3) DC - GF

(4) TS - WV

Q.29 What should come in place of ? in the given series?

16 17 19 23 31 ?

दी गई श्रृंखला में ? के स्थान पर क्या आना चाहिए?

16 17 19 23 31 ?

(1) 48

(2) 47 ✔

(3) 49

(4) 46

Quick Sarkari

Q.30 Select the option figure in which the given figure (X) is embedded as its part (rotation is NOT allowed).

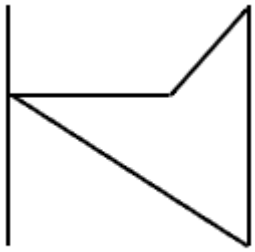

(X)

उस विकल्प आकृति का चयन करें जिसमें दी गई आकृति (X) उसके भाग के रूप में निहित है (घुमाने की अनुमति नहीं है)।

(1) 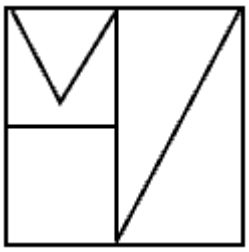

(2) 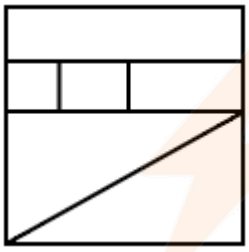

(3) 

(4) 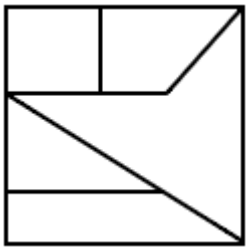

✔

QuickSarkari.com | WhatsApp Channel | Telegram: t.me/quick_sarkari

Q.31 Select the set in which the numbers are related in the same way as are the numbers of the following sets.
(Note: Operations should be performed on the whole numbers, without breaking down the numbers into their constituent digits. E.g. 13 – Operations on 13 such as adding/subtracting/multiplying to 13 can be performed. Breaking down 13 into 1 and 3 and then performing mathematical operations on 1 and 3 is not allowed.)
(10, 2, 6)
(5, 9, 7)

उस समुच्चय का चयन करें जिसमें संख्याएँ उसी प्रकार संबंधित हैं जिस प्रकार निम्नलिखित समुच्चयों की संख्याएँ संबंधित हैं।
(नोट: संक्रियाएँ संख्याओं को उनके घटक अंकों में विभाजित किए बिना, पूर्ण संख्याओं पर की जानी चाहिए। उदाहरण के लिए 13 – 13 पर संक्रियाएँ जैसे 13 में जोड़ना/घटाना/गुणा करना आदि की जा सकती हैं। 13 को 1 और 3 में विभाजित करना और फिर 1 और 3 पर गणितीय संक्रियाएँ करना वर्जित है।)
(10, 2, 6)
(5, 9, 7)

(1) (4, 6, 4)
(2) (7, 11, 7)
(3) (15, 3, 7)
(4) (13, 5, 9) ✔

Q.32 Which of the following letter-clusters should replace # and % so that the pattern and relationship followed between the letter-cluster pair on the left side of :: is the same as that on the right side of ::?
: KPU :: BGL : %

निम्नलिखित में से कौन-से अक्षर-समूह # और % के स्थान पर आने चाहिए ताकि :: के बाईं ओर के अक्षर-समूह युग्म के बीच जो पैटर्न और संबंध है, वही :: के दाईं ओर भी हो?
: KPU :: BGL : %

(1) # = DIN, % = INS ✔
(2) # = DIN, % = IMJ
(3) # = DIN, % = IJS
(4) # = DTN, % = INS

QuickSarkari.com | WhatsApp Channel | Telegram: t.me/quick_sarkari

Q.33 Below are given two sets of numbers. In each set of numbers, a certain mathematical operation on first number results in the second number. Similarly, certain mathematical operation on second number results in the third number and so on. Which of the given options follows the same set of operations as in question?
(NOTE : Operations should be performed on the whole numbers, without breaking down the numbers into its constituent digits. E.g. 13 – Operations on 13 such as adding / subtracting /multiplying etc. to 13 can be performed. Breaking down 13 into 1 and 3 and then performing mathematical operations on 1 and 3 is not allowed)
5 - 10 - 12 - 14 ; 10 - 20 - 22 - 24

नीचे संख्याओं के दो समुच्चय दिए गए हैं। संख्याओं के प्रत्येक समुच्चय में, पहली संख्या पर एक निश्चित गणितीय संक्रिया करने से दूसरी संख्या प्राप्त होती है। इसी प्रकार, दूसरी संख्या पर एक निश्चित गणितीय संक्रिया करने से तीसरी संख्या प्राप्त होती है और इसी प्रकार आगे भी। दिए गए विकल्पों में से कौन-सा विकल्प प्रश्न के समान संक्रियाओं के समुच्चय का अनुसरण करता है?
(नोट: संक्रियाएँ संख्याओं को उनके घटक अंकों में विभाजित किए बिना, पूर्ण संख्याओं पर की जानी चाहिए। उदाहरण के लिए 13 – 13 पर संक्रियाएँ जैसे 13 में जोड़ना / घटाना / गुणा करना आदि की जा सकती हैं। 13 को 1 और 3 में विभाजित करना और फिर 1 और 3 पर गणितीय संक्रियाएँ करना वर्जित है)
5 - 10 - 12 - 14 ; 10 - 20 - 22 - 24

(1) 40 - 80 - 82 - 86
(2) **4 - 8 - 10 - 12** ✔
(3) 7 - 9 - 11 - 13
(4) 11 - 22 - 24 - 25

Q.34 What should come in place of '?' in the given series?
919 920 923 928 935 ?

दी गई श्रृंखला में '?' के स्थान पर क्या आना चाहिए?
919 920 923 928 935 ?

(1) 945
(2) **944** ✔
(3) 942
(4) 943

Q.35 What should come in place of the question mark (?) in the given series?
19, 28, 37, 46, 55, ?

दी गई श्रृंखला में प्रश्न चिह्न (?) के स्थान पर क्या आना चाहिए?
19, 28, 37, 46, 55, ?

(1) **64** ✔
(2) 67
(3) 65
(4) 68

QuickSarkari.com | WhatsApp Channel | Telegram: t.me/quick_sarkari

Q.36 What will come in the place of '?' in the following equation, if '+' and '-' are interchanged and '×' and '÷' are interchanged?
8 ÷ 4 + 8 × 2 - 3 = ?
यदि '+' और '-' को आपस में बदल दिया जाए तथा '×' और '÷' को आपस में बदल दिया जाए, तो निम्नलिखित समीकरण में '?' के स्थान पर क्या आएगा?
8 ÷ 4 + 8 × 2 - 3 = ?

(1) 39
(2) 27
(3) 31 ✔
(4) 35

Q.37 What should come in place of ? in the given series?
28 31 41 58 82 ?
दी गई श्रृंखला में ? के स्थान पर क्या आना चाहिए?
28 31 41 58 82 ?

(1) 114
(2) 113 ✔
(3) 115
(4) 112

Q.38 18 is related to 91 following a certain logic. Following the same logic, 24 is related to 121. To which of the given options is 36 related, following the same logic?
(NOTE: Operations should be performed on the whole numbers, without breaking down the numbers into their constituent digits. E.g. 13 – Operations on 13 such as adding/subtracting/multiplying to 13 can be performed. Breaking down 13 into 1 and 3 and then performing mathematical operations on 1 and 3 is not allowed.)
एक निश्चित तर्क के अनुसार 18, 91 से संबंधित है। उसी तर्क के अनुसार, 24, 121 से संबंधित है। उसी तर्क का अनुसरण करते हुए, 36 दिए गए विकल्पों में से किससे संबंधित है?
(नोट: संक्रियाएँ संख्याओं को उनके घटक अंकों में विभाजित किए बिना, पूर्ण संख्याओं पर की जानी चाहिए। उदाहरण के लिए 13 – 13 पर संक्रियाएँ जैसे 13 में जोड़ना/घटाना/गुणा करना आदि की जा सकती हैं। 13 को 1 और 3 में विभाजित करना और फिर 1 और 3 पर गणितीय संक्रियाएँ करना वर्जित है।)

(1) 162
(2) 144
(3) 181 ✔
(4) 178

Q.39 If 'P' stands for '–', 'Q' stands for '×', 'C' stands for '÷' and 'D' stands for '+', what will be come in place of the question mark '?' in the following equation?
19 D 6 C 2 Q 1 P 17 = ?
यदि 'P' का अर्थ '–' है, 'Q' का अर्थ '×' है, 'C' का अर्थ '÷' है और 'D' का अर्थ '+' है, तो निम्नलिखित समीकरण में प्रश्न चिह्न '?' के स्थान पर क्या आएगा?
19 D 6 C 2 Q 1 P 17 = ?

(1) -5
(2) 25
(3) 15
(4) 5 ✔

Q.40 If '+' means '−', '−' means '×', '×' means '÷' and '÷' means '+', then what will come in place of the question mark (?) in the following equation?
183 ÷ 65 × 5 − 4 + 41 = ?
यदि '+' का अर्थ '−' है, '−' का अर्थ '×' है, '×' का अर्थ '÷' है और '÷' का अर्थ '+' है, तो निम्नलिखित समीकरण में प्रश्न चिह्न (?) के स्थान पर क्या आएगा?
183 ÷ 65 × 5 − 4 + 41 = ?

(1) 194 ✔
(2) 189
(3) 201
(4) 191

General Awareness

Q.41 What is the total defence allocation in India's Union Budget 2025- 26?
भारत के केंद्रीय बजट 2025- 26 में कुल रक्षा आवंटन कितना है?

(1) Rs. 7.05 lakh crore / ₹7.05 लाख करोड़
(2) Rs. 5.94 lakh crore / ₹5.94 लाख करोड़
(3) Rs. 6.21 lakh crore / ₹6.21 लाख करोड़
(4) Rs. 6.81 lakh crore / ₹6.81 लाख करोड़ ✔

Q.42 When was the Bombay Khilafat Committee Established?
बॉम्बे खिलाफत समिति की स्थापना कब हुई थी?

(1) 1922
(2) 1917
(3) 1919 ✔
(4) 1921

Q.43 The 'Lotus Temple' in New Delhi is dedicated to followers of which religion?
नई दिल्ली स्थित 'लोटस टेम्पल' किस धर्म के अनुयायियों को समर्पित है?

(1) Jainism / जैन धर्म
(2) Bahái Faith / बहाई धर्म ✔
(3) Hinduism / हिंदू धर्म
(4) Buddhism / बौद्ध धर्म

Q.44 'X', launched by Mahatma Gandhi in 1919, was a nationwide protest against the Anarchical and Revolutionary Crimes Act, 1919, popularly known as the Rowlatt Act. In April 2019, its centenary was observed across India. Identify 'X'.
1919 में महात्मा गांधी द्वारा शुरू किया गया 'X', अराजक और क्रांतिकारी अपराध अधिनियम, 1919, जिसे लोकप्रिय रूप से रॉलेट एक्ट के रूप में जाना जाता है, के विरुद्ध एक राष्ट्रव्यापी विरोध था। अप्रैल 2019 में, पूरे भारत में इसकी शताब्दी मनाई गई। 'X' की पहचान करें।

(1) Non-Cooperation Movement / असहयोग आंदोलन
(2) Rowlatt Satyagraha / रॉलेट सत्याग्रह ✔
(3) Quit India Movement / भारत छोड़ो आंदोलन
(4) Civil Disobedience Movement / सविनय अवज्ञा आंदोलन

Q.45 Which international day, observed annually on April 22, focuses on environmental protection and was themed 'Our Power, Our Planet' in 2025?

कौन-सा अंतर्राष्ट्रीय दिवस, जो प्रतिवर्ष 22 अप्रैल को मनाया जाता है, पर्यावरण संरक्षण पर केंद्रित है और 2025 में इसका विषय 'हमारी शक्ति, हमारा ग्रह' (Our Power, Our Planet) था?

(1) World Earth Day / विश्व पृथ्वी दिवस ✔

(2) World Environment Day / विश्व पर्यावरण दिवस

(3) World Wildlife Day / विश्व वन्यजीव दिवस

(4) International Day of Forests / अंतर्राष्ट्रीय वन दिवस

Q.46 The partition of Bengal in 1905 was announced by:

1905 में बंगाल के विभाजन की घोषणा किसके द्वारा की गई थी?

(1) Lord Curzon / लॉर्ड कर्जन ✔

(2) Lord Mountbatten / लॉर्ड माउंटबेटन

(3) Lord Ripon / लॉर्ड रिपन

(4) Lord Canning / लॉर्ड कैनिंग

Q.47 At which venue did the 20th National Youth Athletics Championships conclude?

20वीं राष्ट्रीय युवा एथलेटिक्स चैंपियनशिप का समापन किस स्थान पर हुआ?

(1) Sree Kanteerava Stadium, Bengaluru / श्री कंठीरवा स्टेडियम, बेंगलुरु

(2) Salt Lake Stadium, Kolkata / साल्ट लेक स्टेडियम, कोलकाता

(3) Jawaharlal Nehru Stadium, Delhi / जवाहरलाल नेहरू स्टेडियम, दिल्ली

(4) Patliputra Sports Complex, Bihar / पाटलिपुत्र खेल परिसर, बिहार ✔

Q.48 In May 2026, Prime Minister Narendra Modi received the 'Grand Cross of the Royal Norwegian Order of Merit', the highest honour bestowed on foreign Heads of Government by which country?

मई 2026 में, प्रधानमंत्री नरेंद्र मोदी को 'ग्रैंड क्रॉस ऑफ द रॉयल नॉर्वेजियन ऑर्डर ऑफ मेरिट' प्राप्त हुआ, जो किस देश द्वारा विदेशी शासनाध्यक्षों को प्रदान किया जाने वाला सर्वोच्च सम्मान है?

(1) Sweden / स्वीडन

(2) Finland / फ़िनलैंड

(3) Norway / नॉर्वे ✔

(4) Denmark / डेनमार्क

Q.49 Which ministry patronized India Energy Week 2025?

इंडिया एनर्जी वीक 2025 को किस मंत्रालय ने संरक्षण प्रदान किया?

(1) Ministry of New and Renewable Energy / नवीन और नवीकरणीय ऊर्जा मंत्रालय

(2) Ministry of Power / विद्युत मंत्रालय

(3) Ministry of Environment, Forest and Climate Change / पर्यावरण, वन और जलवायु परिवर्तन मंत्रालय

(4) Ministry of Petroleum and Natural Gas / पेट्रोलियम और प्राकृतिक गैस मंत्रालय ✔

Q.50 Which form of Hindustani music is noted for its romantic or devotional themes, often lighter in nature?

हिंदुस्तानी संगीत का कौन-सा रूप अपने श्रृंगारिक या भक्तिपूर्ण विषयों के लिए जाना जाता है, जो प्रायः हल्की प्रकृति का होता है?

(1) Dhrupad / ध्रुपद

(2) Tappa / टप्पा

(3) Thumri / ठुमरी ✔

(4) Tarana / तराना

Q.51 Which organization released the report titled "Unlocking ₹2,13,925+ crore Export Potential – India's Hand & Power Tools Sector" in April 2025?

अप्रैल 2025 में "Unlocking ₹2,13,925+ crore Export Potential – India's Hand & Power Tools Sector" शीर्षक वाली रिपोर्ट किस संगठन ने जारी की?

(1) NITI Aayog / नीति आयोग ✔

(2) Department for Promotion of Industry and Internal Trade (DPIIT) / उद्योग संवर्धन और आंतरिक व्यापार विभाग (DPIIT)

(3) Ministry of Commerce and Industry / वाणिज्य और उद्योग मंत्रालय

(4) Ministry of Heavy Industries / भारी उद्योग मंत्रालय

Q.52 Which organization has designed and developed the new low-cost counter-drone system 'Bhargavastra' in 2025?

2025 में नई कम लागत वाली काउंटर-ड्रोन प्रणाली 'भार्गवास्त्र' को किस संगठन ने डिज़ाइन और विकसित किया है?

(1) Solar Defence and Aerospace Limited (SDAL) / सोलर डिफेंस एंड एयरोस्पेस लिमिटेड (SDAL) ✔

(2) Bharat Electronics Limited (BEL) / भारत इलेक्ट्रॉनिक्स लिमिटेड (BEL)

(3) Hindustan Aeronautics Limited (HAL) / हिंदुस्तान एयरोनॉटिक्स लिमिटेड (HAL)

(4) Defence Research and Development Organisation (DRDO) / रक्षा अनुसंधान और विकास संगठन (DRDO)

Q.53 Which of the following ancient Indian eras started in 78 CE?

निम्नलिखित में से कौन-सा प्राचीन भारतीय संवत् 78 ईस्वी में शुरू हुआ?

(1) Saka / शक ✔

(2) Gupta / गुप्त

(3) Kalchuri / कलचुरी

(4) Vikram / विक्रम

Q.54 What is the name of the book released on March 18, 2025, at Shivaji Stadium, New Delhi to celebrate the historic Hockey World Cup victory of India in 1975? (Written by hockey historian K. Arumugam and journalist Errol D'Cruz)

1975 में भारत की ऐतिहासिक हॉकी विश्व कप जीत का जश्न मनाने के लिए 18 मार्च, 2025 को शिवाजी स्टेडियम, नई दिल्ली में जारी की गई पुस्तक का नाम क्या है? (हॉकी इतिहासकार के. अरुमुगम और पत्रकार एरोल डी'क्रूज़ द्वारा लिखित)

(1) March of Glory / मार्च ऑफ ग्लोरी ✔

(2) Gods of Glory / गॉड्स ऑफ ग्लोरी

(3) Golden Glory / गोल्डन ग्लोरी

(4) Indian Glory / इंडियन ग्लोरी

Q.55 Which Mughal emperor abolished the Jizya tax on non-Muslims?

किस मुगल बादशाह ने गैर-मुसलमानों पर लगने वाले जज़िया कर को समाप्त कर दिया था?

(1) Humayun / हुमायूँ

(2) Akbar / अकबर ✔

(3) Babur / बाबर

(4) Aurangzeb / औरंगज़ेब

Q.56 Which launch vehicle was used to launch the SpaDeX mission?

SpaDeX मिशन को प्रक्षेपित करने के लिए किस प्रक्षेपण यान का उपयोग किया गया था?

(1) GSLV Mk III

(2) **PSLV-C60 ✔**

(3) PSLV-C69

(4) GSLV Mk II

Q.57 The Brihadeeswarar Temple at Thanjavur, a UNESCO World Heritage Site, was constructed during the reign of which Chola king?

तंजावुर स्थित बृहदेश्वर मंदिर, जो यूनेस्को विश्व धरोहर स्थल है, का निर्माण किस चोल राजा के शासनकाल में हुआ था?

(1) Kulothunga Chola I / कुलोत्तुंग चोल प्रथम

(2) Vikrama Chola / विक्रम चोल

(3) **Rajaraja Chola I / राजराज चोल प्रथम ✔**

(4) Rajendra Chola I / राजेंद्र चोल प्रथम

Q.58 The ex-president of which South American country was sentenced to 15 years in prison for money laundering in April 2025?

अप्रैल 2025 में किस दक्षिण अमेरिकी देश के पूर्व राष्ट्रपति को धन शोधन (मनी लॉन्ड्रिंग) के लिए 15 वर्ष के कारावास की सजा सुनाई गई?

(1) **Peru / पेरू ✔**

(2) Ecuador / इक्वाडोर

(3) Colombia / कोलंबिया

(4) Venezuela / वेनेज़ुएला

Q.59 How many States and UTs achieved the 'Front Runner' category (score between 65–99) in 2023-24, according to the Sustainable Development Goals India Index 2023-24?

सतत विकास लक्ष्य (SDG) भारत सूचकांक 2023-24 के अनुसार, 2023-24 में कितने राज्यों और केंद्र शासित प्रदेशों ने 'फ्रंट रनर' श्रेणी (65–99 के बीच स्कोर) प्राप्त की?

(1) **32 ✔**

(2) 30

(3) 34

(4) 28

Q.60 'X' emerged as a powerful kingdom in the western Deccan with its capital at Vatapi (modern Badami in Karnataka). During the reign of Pulakesin II, it defeated Harshavardhana around 630 CE, after which Pulakesin II assumed the title Dakshinapatheshvara. Identify 'X'.

'X' पश्चिमी दक्कन में एक शक्तिशाली राज्य के रूप में उभरा, जिसकी राजधानी वातापी (कर्नाटक में आधुनिक बादामी) थी। पुलकेशिन द्वितीय के शासनकाल के दौरान, इसने लगभग 630 ईस्वी में हर्षवर्धन को पराजित किया, जिसके बाद पुलकेशिन द्वितीय ने दक्षिणापथेश्वर की उपाधि धारण की। 'X' की पहचान करें।

(1) The Pallava Kingdom / पल्लव राज्य

(2) **The Chalukya Kingdom / चालुक्य राज्य ✔**

(3) The Rashtrakuta Kingdom / राष्ट्रकूट राज्य

(4) The Pandya Kingdom / पांड्य राज्य

Q.61 Which of the following two island countries are India's neighbours in the Indian Ocean?
निम्नलिखित में से कौन-से दो द्वीपीय देश हिंद महासागर में भारत के पड़ोसी हैं?

(1) Maldives and Mauritius / मालदीव और मॉरीशस
(2) Sri Lanka and the Philippines / श्रीलंका और फिलीपींस
(3) Mauritius and Seychelles / मॉरीशस और सेशेल्स
(4) **Sri Lanka and the Maldives / श्रीलंका और मालदीव ✔**

Q.62 Why do the southern parts of India have high temperatures throughout the year compared to the northern parts?
भारत के उत्तरी भागों की तुलना में दक्षिणी भागों में पूरे वर्ष उच्च तापमान क्यों रहता है?

(1) **Because it's closer to the Equator / क्योंकि यह भूमध्य रेखा के निकट है ✔**
(2) Because it's far from Himalayas / क्योंकि यह हिमालय से दूर है
(3) Because it's far from the Equator / क्योंकि यह भूमध्य रेखा से दूर है
(4) Because it's far from the sea / क्योंकि यह समुद्र से दूर है

Q.63 Which of the following statements about the Vice-President of India is correct ?
भारत के उपराष्ट्रपति के संबंध में निम्नलिखित में से कौन-सा कथन सही है?

(1) The Vice President is elected only by members of the State Legislative Assemblies. / उपराष्ट्रपति का निर्वाचन केवल राज्य विधानसभाओं के सदस्यों द्वारा किया जाता है।
(2) The Vice President is not eligible for re-election after serving one term. / उपराष्ट्रपति एक कार्यकाल पूरा करने के बाद पुनः निर्वाचन के लिए पात्र नहीं है।
(3) **The Vice President is elected by both Houses of the Parliament using single transferable vote for a five-year term. / उपराष्ट्रपति का निर्वाचन संसद के दोनों सदनों द्वारा एकल संक्रमणीय मत प्रणाली का उपयोग करके पाँच वर्ष के कार्यकाल के लिए किया जाता है। ✔**
(4) The Vice President holds office for a six-year term. / उपराष्ट्रपति छह वर्ष के कार्यकाल के लिए पद धारण करता है।

Q.64 Which of the following water resource projects is located across the Krishna River?
निम्नलिखित में से कौन-सी जल संसाधन परियोजना कृष्णा नदी पर स्थित है?

(1) Tehri Dam / टिहरी बाँध
(2) **Nagarjuna Sagar / नागार्जुन सागर ✔**
(3) Gandak Project / गंडक परियोजना
(4) Mettur Dam / मेट्टूर बाँध

Q.65 Which Union Territory has a Legislative Assembly after the reorganization in 2019?
2019 में पुनर्गठन के बाद किस केंद्र शासित प्रदेश में विधानसभा है?

(1) **Jammu and Kashmir / जम्मू और कश्मीर ✔**
(2) Ladakh / लद्दाख
(3) Delhi / दिल्ली
(4) Puducherry / पुडुचेरी

Q.66 Which of the following is NOT a feature of multipurpose river valley projects in India?
निम्नलिखित में से कौन-सी भारत में बहुउद्देशीय नदी घाटी परियोजनाओं की विशेषता नहीं है?

(1) Irrigation / सिंचाई
(2) **Atomic power generation / परमाणु ऊर्जा उत्पादन ✔**
(3) Flood control / बाढ़ नियंत्रण
(4) Inland navigation / अंतर्देशीय नौवहन

Q.67 Which of the following terms refers to the average weather conditions of a place over a long period?
निम्नलिखित में से कौन-सा शब्द किसी स्थान की लंबी अवधि की औसत मौसमी दशाओं को संदर्भित करता है?

(1) Monsoon / मानसून
(2) Summer / ग्रीष्म ऋतु
(3) Weather / मौसम
(4) **Climate / जलवायु ✔**

Q.68 Which of the following plans was specifically notified to control air pollution levels in Delhi-NCR and lays out cumulative action measures based on Air Quality Index (AQI) levels?
निम्नलिखित में से कौन-सी योजना विशेष रूप से दिल्ली-NCR में वायु प्रदूषण के स्तर को नियंत्रित करने के लिए अधिसूचित की गई थी और वायु गुणवत्ता सूचकांक (AQI) के स्तरों के आधार पर संचयी कार्रवाई उपाय निर्धारित करती है?

(1) National Environmental Policy (NEP) / राष्ट्रीय पर्यावरण नीति (NEP)
(2) National Air Quality Monitoring Programme (NAMP) / राष्ट्रीय वायु गुणवत्ता निगरानी कार्यक्रम (NAMP)
(3) **Graded Response Action Plan (GRAP) / ग्रेडेड रिस्पॉन्स एक्शन प्लान (GRAP) ✔**
(4) National Clean Air Programme (NCAP) / राष्ट्रीय स्वच्छ वायु कार्यक्रम (NCAP)

Q.69 Which enzyme present in human saliva breaks down starch into simple sugars?
मानव लार में उपस्थित कौन-सा एंजाइम स्टार्च को सरल शर्कराओं में तोड़ता है?

(1) Salivary Pepsin / लार पेप्सिन
(2) Salivary Trypsin / लार ट्रिप्सिन
(3) **Salivary Amylase / लार एमाइलेज ✔**
(4) Salivary Lipase / लार लाइपेज

Q.70 Which change was introduced in India's trade policy as part of the 1991 economic reforms?
1991 के आर्थिक सुधारों के भाग के रूप में भारत की व्यापार नीति में कौन-सा परिवर्तन किया गया?

(1) **Reduction of import tariffs / आयात शुल्कों में कमी ✔**
(2) Expansion of export licensing / निर्यात लाइसेंसिंग का विस्तार
(3) Promotion of import substitution / आयात प्रतिस्थापन को बढ़ावा
(4) Increase in quantitative restrictions / मात्रात्मक प्रतिबंधों में वृद्धि

Q.71 Which of the following policy measures allowed foreign companies to invest directly in Indian industries after the 1991 reforms?
1991 के सुधारों के बाद निम्नलिखित में से किस नीतिगत उपाय ने विदेशी कंपनियों को भारतीय उद्योगों में प्रत्यक्ष निवेश करने की अनुमति दी?

(1) Import substitution policy / आयात प्रतिस्थापन नीति
(2) **Foreign direct investment policy / प्रत्यक्ष विदेशी निवेश नीति ✔**
(3) Public monopoly policy / सार्वजनिक एकाधिकार नीति
(4) Administered licensing policy / प्रशासित लाइसेंसिंग नीति

Q.72 Under which article did the Supreme Court include the directive principle of equal pay for equal work in the fundamental right to equality?
सर्वोच्च न्यायालय ने समान कार्य के लिए समान वेतन के निदेशक सिद्धांत को किस अनुच्छेद के तहत समता के मौलिक अधिकार में शामिल किया?

(1) Article 16 / अनुच्छेद 16
(2) Article 21 / अनुच्छेद 21
(3) Article 18 / अनुच्छेद 18
(4) **Article 14 / अनुच्छेद 14 ✔**

Q.73 Under which Article of the Indian Constitution does an Indian citizen automatically lose their citizenship upon voluntarily acquiring the citizenship of a foreign state?

भारतीय संविधान के किस अनुच्छेद के तहत कोई भारतीय नागरिक स्वेच्छा से किसी विदेशी राज्य की नागरिकता प्राप्त करने पर स्वतः अपनी नागरिकता खो देता है?

(1) Section 9 of the Citizenship Act, 1955 / नागरिकता अधिनियम, 1955 की धारा 9 ✔

(2) The Foreigners Act, 1946 / विदेशी विषयक अधिनियम, 1946

(3) The Tenth Schedule of the Constitution / संविधान की दसवीं अनुसूची

(4) Article 21 of the Indian Constitution / भारतीय संविधान का अनुच्छेद 21

Q.74 Which of the following measures can help reduce poverty in India?

निम्नलिखित में से कौन-से उपाय भारत में गरीबी कम करने में सहायक हो सकते हैं?

(1) Population decline / जनसंख्या में गिरावट

(2) Inclusive growth policies / समावेशी विकास नीतियाँ ✔

(3) Export bans / निर्यात प्रतिबंध

(4) High inflation / उच्च मुद्रास्फीति

Q.75 When a force (F) acts in the same direction as the displacement of an object (s), what is the formula for work done (W)?

जब कोई बल (F) किसी वस्तु के विस्थापन (s) की दिशा में ही कार्य करता है, तो किए गए कार्य (W) का सूत्र क्या है?

(1) W = F + s

(2) W = F x s ✔

(3) W = F/s

(4) W = F - s

Q.76 What does the reduction in India's Gini index indicate?

भारत के गिनी सूचकांक में कमी क्या दर्शाती है?

(1) Rise in unemployment / बेरोज़गारी में वृद्धि

(2) Reduction in income inequality / आय असमानता में कमी ✔

(3) Increase in poverty / गरीबी में वृद्धि

(4) Decline in economic growth / आर्थिक संवृद्धि में गिरावट

Q.77 "To take steps to secure the participation of workers in the management of industries" provision was added to the Directive Principles of State Policy through which of the following constitutional amendments of the Indian constitution?

"उद्योगों के प्रबंधन में कर्मकारों की भागीदारी सुनिश्चित करने के लिए कदम उठाना" प्रावधान भारतीय संविधान के निम्नलिखित में से किस संवैधानिक संशोधन के माध्यम से राज्य के नीति निदेशक तत्वों में जोड़ा गया था?

(1) 92nd Amendment Act / 92वाँ संशोधन अधिनियम

(2) 44th Amendment Act / 44वाँ संशोधन अधिनियम

(3) 42nd Amendment Act / 42वाँ संशोधन अधिनियम ✔

(4) 86th Amendment Act / 86वाँ संशोधन अधिनियम

Q.78 The Directive Principles of State Policy in Indian Constitution resembles the 'Instruments of Instructions' enumerated in the _____.

भारतीय संविधान के राज्य के नीति निदेशक तत्व _____ में वर्णित 'अनुदेशों के लिखत' (Instruments of Instructions) से मिलते-जुलते हैं।

(1) Indian Council Act of 1909 / भारतीय परिषद अधिनियम, 1909

(2) Government of India Act of 1919 / भारत सरकार अधिनियम, 1919

(3) Government of India Act of 1947 / भारत सरकार अधिनियम, 1947

(4) Government of India Act of 1935 / भारत सरकार अधिनियम, 1935 ✔

Q.79 In the two-kingdom classification system by Linnaeus, which two kingdoms were included?

लिनिअस द्वारा दी गई द्वि-जगत वर्गीकरण प्रणाली में कौन-से दो जगत शामिल थे?

(1) Animalia and Protista / एनिमेलिया और प्रोटिस्टा

(2) Monera and Fungi / मोनेरा और कवक (फंजाई)

(3) Plantae and Fungi / प्लांटी और कवक (फंजाई)

(4) Plantae and Animalia / प्लांटी और एनिमेलिया ✔

Q.80 The concept of Judicial Review in the Indian Constitution is borrowed from which country?

भारतीय संविधान में न्यायिक पुनर्विलोकन की अवधारणा किस देश से ली गई है?

(1) United Kingdom / यूनाइटेड किंगडम

(2) Ireland / आयरलैंड

(3) United States of America / संयुक्त राज्य अमेरिका ✔

(4) Canada / कनाडा

Arithmetical and Numerical Ability

Q.81 The price of a book is successively decreased by 30% and 10%. What is the overall percentage change?

एक पुस्तक के मूल्य में क्रमशः 30% और 10% की कमी की जाती है। कुल प्रतिशत परिवर्तन कितना है?

(1) 35% decrease / 35% कमी

(2) 33% decrease / 33% कमी

(3) 36% increase / 36% वृद्धि

(4) 37% decrease / 37% कमी ✔

Q.82 At what rate percentage per annum will a sum of money becomes 4 times of itself in 5 years on simple interest?

साधारण ब्याज पर कोई धनराशि 5 वर्षों में स्वयं की 4 गुना कितने प्रतिशत वार्षिक दर से हो जाएगी?

(1) 60 ✔

(2) 58

(3) 65

(4) 62

Q.83 Which of the following numbers is divisible by 30?

निम्नलिखित में से कौन-सी संख्या 30 से विभाज्य है?

(1) 829858

(2) 829380 ✔

(3) 827385

(4) 827500

Q.84 Pooja wants to sell a watch at a profit of 20%. She bought it at 10% less and sold it at ₹30 less, but still she gained 20%. The cost price of watch is:

पूजा एक घड़ी को 20% के लाभ पर बेचना चाहती है। उसने इसे 10% कम मूल्य पर खरीदा और ₹30 कम में बेचा, फिर भी उसे 20% का लाभ हुआ। घड़ी का क्रय मूल्य है:

(1) ₹250 ✔

(2) ₹260

(3) ₹245

(4) ₹240

Q.85 Simplify :

$(a^3 \times b^{10} \times c^{10}) \times (a^7 \times b^3 \times c^{-6})$

सरल कीजिए :

$(a^3 \times b^{10} \times c^{10}) \times (a^7 \times b^3 \times c^{-6})$

(1) $a^{10} \times b^{13} \times c^4$ ✔

(2) $a^1 \times b^{-9} \times c^{-1}$

(3) $a^{-10} \times b^3 \times c^{10}$

(4) $a^{-10} \times b^8 \times c^{-5}$

Q.86 The average of 41 numbers is 42. The average of the first 15 numbers is 54 and the average of the last 27 numbers is 44. If the 15th number from the beginning is excluded, then what is the average of the remaining numbers?

41 संख्याओं का औसत 42 है। पहली 15 संख्याओं का औसत 54 है और अंतिम 27 संख्याओं का औसत 44 है। यदि आरंभ से 15वीं संख्या को हटा दिया जाए, तो शेष संख्याओं का औसत क्या होगा?

(1) 37.4

(2) 33.654

(3) 36.15 ✔

(4) 36.17

Q.87 The number 966181 is divisible by which of the following?

संख्या 966181 निम्नलिखित में से किससे विभाज्य है?

(1) 37 ✔

(2) 36

(3) 38

(4) 30

Q.88 The HCF of three numbers is 19 and other prime factors of the LCM of the three numbers are 7, 11 and 17, respectively. If each number has exactly two prime factors, find the smallest of the three numbers.

तीन संख्याओं का HCF 19 है और तीनों संख्याओं के LCM के अन्य अभाज्य गुणनखंड क्रमशः 7, 11 और 17 हैं। यदि प्रत्येक संख्या के ठीक दो अभाज्य गुणनखंड हैं, तो तीनों संख्याओं में से सबसे छोटी संख्या ज्ञात कीजिए।

(1) 103

(2) 133 ✔

(3) 179

(4) 157

Q.89 A wholesaler buys 150 meters of cloth at ₹80 per meter and sells it in 5-meter rolls, pricing each roll at ₹450. What is the wholesaler's overall percentage profit or loss?

एक थोक विक्रेता ₹80 प्रति मीटर की दर से 150 मीटर कपड़ा खरीदता है और उसे 5-मीटर के रोल में बेचता है, प्रत्येक रोल का मूल्य ₹450 रखता है। थोक विक्रेता का कुल प्रतिशत लाभ या हानि कितना है?

(1) 12.5% Loss / 12.5% हानि

(2) 15% Profit / 15% लाभ

(3) 15% Loss / 15% हानि

(4) 12.5% Profit / 12.5% लाभ ✔

Q.90 What will be the amount on a sum of ₹2,150 invested at 20% per annum compound interest, compounded annually, for 2 years?

₹2,150 की धनराशि पर 20% वार्षिक चक्रवृद्धि ब्याज की दर से, जो वार्षिक रूप से संयोजित होता है, 2 वर्ष में मिश्रधन कितना होगा?

(1) ₹3,024

(2) ₹3,096 ✔

(3) ₹3,070

(4) ₹3,063

Q.91 A 100-litre mixture contains milk and water in the ratio 3:2. How many litres of water should be added so that the ratio of milk to water becomes 1:1?

100 लीटर के एक मिश्रण में दूध और पानी का अनुपात 3:2 है। इसमें कितने लीटर पानी मिलाया जाना चाहिए ताकि दूध और पानी का अनुपात 1:1 हो जाए?

(1) 20 ✔

(2) 15

(3) 10

(4) 25

Quick Sarkari

Q.92 The bar graph below shows the number of males and females, who visited a city on different days in the year 2022.

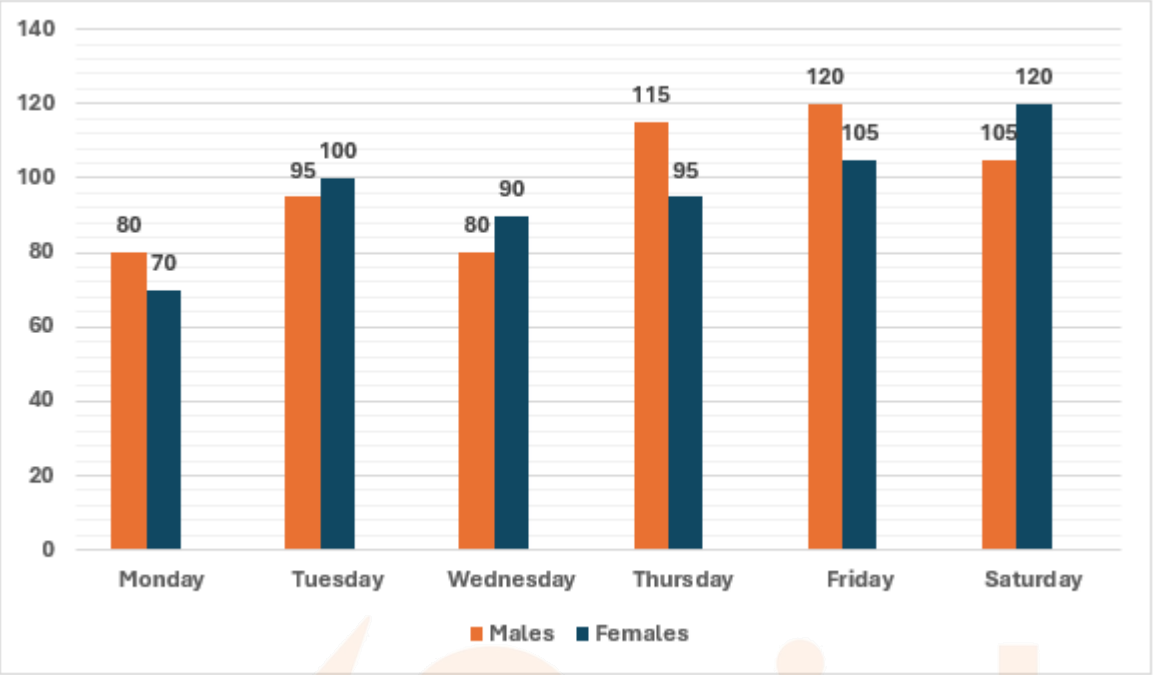

What is the total number of males who visited the city in 2022 on a Tuesday and a Saturday?

नीचे दिया गया दंड आलेख वर्ष 2022 में विभिन्न दिनों में एक शहर का भ्रमण करने वाले पुरुषों और महिलाओं की संख्या दर्शाता है।

2022 में मंगलवार और शनिवार को शहर का भ्रमण करने वाले पुरुषों की कुल संख्या कितनी है?

(1) 115

(2) **200** ✔

(3) 210

(4) 175

Q.93 The following table shows the marks obtained (out of 100) by four students, Ram, Mohan, Mona and Kelvin, in four subjects, English, Maths, GK and Computer, in an examination.

Name | English | Maths | GK | Computer

Ram | 85 | 94 | 96 | 92

Mohan | 95 | 96 | 92 | 93

Mona | 98 | 91 | 98 | 99

Kelvin | 99 | 95 | 91 | 90 Find the average marks scored by Ram, Mohan, Mona and Kelvin in English.

निम्नलिखित तालिका एक परीक्षा में चार छात्रों, राम, मोहन, मोना और केल्विन द्वारा चार विषयों, अंग्रेज़ी, गणित, सामान्य ज्ञान और कंप्यूटर में प्राप्त अंक (100 में से) दर्शाती है।

नाम | अंग्रेज़ी | गणित | सामान्य ज्ञान | कंप्यूटर

राम | 85 | 94 | 96 | 92

मोहन | 95 | 96 | 92 | 93

मोना | 98 | 91 | 98 | 99

केल्विन | 99 | 95 | 91 | 90 राम, मोहन, मोना और केल्विन द्वारा अंग्रेज़ी में प्राप्त औसत अंक ज्ञात कीजिए।

(1) **94.25** ✔

(2) 93.25

(3) 92.25

(4) 95.25

Q.94 The fraction equivalent to 5.18181... is:

5.18181... के तुल्य भिन्न है:

(1) 47/2

(2) **57/11** ✔

(3) 53/12

(4) 64/19

Q.95 Given that $120^{0.03} = x$, $120^{0.08} = y$ and $x^z = y^4$, then the value of z is close to:

दिया गया है कि $120^{0.03} = x$, $120^{0.08} = y$ और $x^z = y^4$ है, तो z का मान लगभग है:

(1) 14.65

(2) 8.27

(3) **10.67** ✔

(4) 9.34

Q.96 In what ratio should sugar costing ₹12 per kg be mixed with sugar costing ₹48 per kg so that by selling the mixture at ₹46.2 per kg, there is a profit of 32%?

₹12 प्रति kg मूल्य वाली चीनी को ₹48 प्रति kg मूल्य वाली चीनी के साथ किस अनुपात में मिलाया जाना चाहिए ताकि मिश्रण को ₹46.2 प्रति kg पर बेचने पर 32% का लाभ हो?

(1) **13 : 23** ✔

(2) 25 : 12

(3) 21 : 14

(4) 22 : 15

Q.97 A person who spends 35% of his monthly income is able to save ₹9,750 per month. What are his monthly expenses (in ₹)?

एक व्यक्ति जो अपनी मासिक आय का 35% खर्च करता है, प्रति माह ₹9,750 की बचत कर पाता है। उसका मासिक व्यय (₹ में) कितना है?

(1) 5,000

(2) 5,500

(3) 5,750

(4) **5,250** ✔

Q.98 What will be the amount on a sum of ₹2,900 invested at 10% per annum compound interest, compounded annually, for 2 years?

₹2,900 की धनराशि पर 10% वार्षिक चक्रवृद्धि ब्याज की दर से, जो वार्षिक रूप से संयोजित होता है, 2 वर्ष में मिश्रधन कितना होगा?

(1) **₹3,509** ✔

(2) ₹3,267

(3) ₹3,769

(4) ₹3,569

Q.99 The LCM of the numbers 28 and 216 is:

संख्याओं 28 और 216 का LCM है:

(1) 1504

(2) 1508

(3) **1512** ✔

(4) 1516

Q.100 The area of a square plot is 20736 m^2. The length of each side of the plot (in m) is:

एक वर्गाकार भूखंड का क्षेत्रफल 20736 m^2 है। भूखंड की प्रत्येक भुजा की लंबाई (m में) है:

(1) 134

(2) 154

(3) 144 ✔

(4) 164

Q.101 If 3.2 : 19.3 :: 16 : x, find the value of x.

यदि 3.2 : 19.3 :: 16 : x है, तो x का मान ज्ञात कीजिए।

(1) 96.5 ✔

(2) 92.2

(3) 91.9

(4) 91.7

Q.102 The ratio of the heights of a right circular cone and a right circular cylinder is 9 : 2 and the ratio of the radii of their bases is 5 : 4. If the volume of the cylinder is 864 cm^3, then the volume (in cm^3) of the cone is:

एक लंब वृत्तीय शंकु और एक लंब वृत्तीय बेलन की ऊँचाइयों का अनुपात 9 : 2 है और उनके आधारों की त्रिज्याओं का अनुपात 5 : 4 है। यदि बेलन का आयतन 864 cm^3 है, तो शंकु का आयतन (cm^3 में) है:

(1) 2022

(2) 2032

(3) 2025 ✔

(4) 2020

Q.103 A conical lampshade has a radius of 6 cm and a slant height of 28 cm. Find the area of cloth needed to cover its curved surface only. (Use π = 22/7)

एक शंक्वाकार लैंपशेड की त्रिज्या 6 cm और तिर्यक ऊँचाई 28 cm है। केवल इसके वक्र पृष्ठ को ढकने के लिए आवश्यक कपड़े का क्षेत्रफल ज्ञात कीजिए। (π = 22/7 का प्रयोग करें)

(1) 518 square cm / 518 वर्ग cm

(2) 540 square cm / 540 वर्ग cm

(3) 504 square cm / 504 वर्ग cm

(4) 528 square cm / 528 वर्ग cm ✔

Q.104 Find the area (in square units) of the triangle formed by the straight lines p = 0, q = 0 and 3p + 4q = 12.

सरल रेखाओं p = 0, q = 0 और 3p + 4q = 12 द्वारा बनने वाले त्रिभुज का क्षेत्रफल (वर्ग इकाई में) ज्ञात कीजिए।

(1) 18

(2) 6 ✔

(3) 12

(4) 9

Q.105 The length, breadth and height of a cuboid are increased by 2%, 8% and 25%, respectively. Find out the percentage increase in its volume.

एक घनाभ की लंबाई, चौड़ाई और ऊँचाई में क्रमशः 2%, 8% और 25% की वृद्धि की जाती है। इसके आयतन में प्रतिशत वृद्धि ज्ञात कीजिए।

(1) 34.4%

(2) 33.5%

(3) 35%

(4) 37.7% ✔

Q.106 A computer is sold after being marked down twice, first by 25%, and then by 10%. If the final selling price is ₹33,750, determine the original marked price.

एक कंप्यूटर को दो बार मूल्य घटाने के बाद बेचा जाता है, पहले 25% और फिर 10%। यदि अंतिम विक्रय मूल्य ₹33,750 है, तो मूल अंकित मूल्य ज्ञात कीजिए।

(1) ₹50,000 ✔

(2) ₹47,000

(3) ₹52,000

(4) ₹45,000

Q.107 A can do a piece of work in 3 days and B can do the same work in 12 days. Working together, how much work can be done by them in 2 days?

A किसी कार्य को 3 दिनों में कर सकता है और B उसी कार्य को 12 दिनों में कर सकता है। एक साथ कार्य करते हुए, वे 2 दिनों में कितना कार्य कर सकते हैं?

(1) 2/3

(2) 3/4

(3) 11/12

(4) 5/6 ✔

Q.108 If the curved surface area of a closed right circular cylinder is 502.4 cm^2 and its height is 10 cm, then what is its total surface area (in cm^2)? (Use π = 3.14)

यदि एक बंद लंब वृत्तीय बेलन का वक्र पृष्ठीय क्षेत्रफल 502.4 cm^2 है और इसकी ऊँचाई 10 cm है, तो इसका संपूर्ण पृष्ठीय क्षेत्रफल (cm^2 में) कितना है? (π = 3.14 का प्रयोग करें)

(1) 944.32

(2) 904.32 ✔

(3) 804.32

(4) 994.32

Q.109 A woman travels 860 km at a speed of 86 km/h, then covers another 970 km at a speed of 97 km/h, and finally travels 170 km at a speed of 34 km/h. Find her average speed for the entire journey (in km/h).

एक महिला 86 km/h की चाल से 860 km की यात्रा करती है, फिर 97 km/h की चाल से अन्य 970 km की दूरी तय करती है, और अंत में 34 km/h की चाल से 170 km की यात्रा करती है। पूरी यात्रा के लिए उसकी औसत चाल (km/h में) ज्ञात कीजिए।

(1) 78

(2) 71

(3) 80 ✔

(4) 76

Q.110 A solid metallic sphere of diameter 18 cm is melted and converted into a solid cone of diameter 12 cm. Find the height of the cone so formed.

18 cm व्यास वाले एक ठोस धात्विक गोले को पिघलाकर 12 cm व्यास वाले एक ठोस शंकु में परिवर्तित किया जाता है। इस प्रकार बने शंकु की ऊँचाई ज्ञात कीजिए।

(1) 72 cm

(2) 81 cm ✔

(3) 63 cm

(4) 90 cm

Q.111 A notebook is listed at ₹180 with a discount of 20%. What additional percentage discount must be offered to the customer to bring the net price to ₹108?

एक नोटबुक का सूचीबद्ध मूल्य ₹180 है जिस पर 20% की छूट है। निवल मूल्य को ₹108 तक लाने के लिए ग्राहक को कितने प्रतिशत की अतिरिक्त छूट दी जानी चाहिए?

(1) 25 ✔

(2) 27

(3) 30

(4) 23

Q.112 A train goes from A to B at a speed of 84 km/h and returns from B to A by the same route at a speed of 42 km/h. The average speed (in km/h) of the train during the two-way journey is:

एक रेलगाड़ी 84 km/h की चाल से A से B तक जाती है और उसी मार्ग से 42 km/h की चाल से B से A तक लौटती है। दोनों ओर की यात्रा के दौरान रेलगाड़ी की औसत चाल (km/h में) है:

(1) 54

(2) 59

(3) 56 ✔

(4) 55

Q.113 If the lateral surface area of a cylinder is 118.3 cm^2 and its height is 3 cm, then find its volume. (Use π = 3.14 and round off your answer to two decimal places)

यदि एक बेलन का पार्श्व पृष्ठीय क्षेत्रफल 118.3 cm^2 है और इसकी ऊँचाई 3 cm है, तो इसका आयतन ज्ञात कीजिए। (π = 3.14 का प्रयोग करें और अपने उत्तर को दो दशमलव स्थानों तक पूर्णांकित करें)

(1) 371.41 cm^3 ✔

(2) 378.84 cm^3

(3) 345.14 cm^3

(4) 377.21 cm^3

Q.114 A shopkeeper sells an item for ₹335.4 after giving two successive discounts of 88% and 80% on its marked price. Had he not given any discount, he would have earned a profit of 30%. What is the cost price (in ₹) of the item?

एक दुकानदार किसी वस्तु के अंकित मूल्य पर 88% और 80% की दो क्रमिक छूट देने के बाद उसे ₹335.4 में बेचता है। यदि उसने कोई छूट नहीं दी होती, तो उसे 30% का लाभ होता। वस्तु का क्रय मूल्य (₹ में) कितना है?

(1) 10,733

(2) 10,750 ✔

(3) 10,724

(4) 10,739

Q.115 Find the mean proportional of 20 and 80.

20 और 80 का मध्यानुपाती ज्ञात कीजिए।

(1) 40 ✔

(2) 39

(3) 42

(4) 37

Q.116 If x is inversely proportional to y, and y = 6 when x = 2, find the value of x, when y = 42.

यदि x, y के व्युत्क्रमानुपाती है, और x = 2 होने पर y = 6 है, तो y = 42 होने पर x का मान ज्ञात कीजिए।

(1) 3/8

(2) 2/7 ✔

(3) 4/10

(4) 2/8

Q.117 X and Y started a business by investing ₹54,000 and ₹27,000, respectively. Y left the business after 8 months and Z joined the business with a sum of ₹64,000. The profit earned at the end of the year is ₹1,25,440. What is Y's share of profit?

X और Y ने क्रमशः ₹54,000 और ₹27,000 का निवेश करके एक व्यवसाय शुरू किया। Y ने 8 महीने बाद व्यवसाय छोड़ दिया और Z ₹64,000 की राशि के साथ व्यवसाय में शामिल हुआ। वर्ष के अंत में अर्जित लाभ ₹1,25,440 है। लाभ में Y का हिस्सा कितना है?

(1) ₹23,994

(2) ₹23,979

(3) ₹24,104

(4) ₹24,192 ✔

Q.118 A and B together can complete a piece of work in 22 days. If A alone can complete the same work in 66 days, then in how many days can B alone complete one-third of the work?

A और B मिलकर किसी कार्य को 22 दिनों में पूरा कर सकते हैं। यदि A अकेला उसी कार्य को 66 दिनों में पूरा कर सकता है, तो B अकेला उस कार्य का एक-तिहाई भाग कितने दिनों में पूरा कर सकता है?

(1) 22

(2) 44

(3) 33

(4) 11 ✔

Q.119 A cube has 8cm edge length. What would be the largest possible distance between its two corners?

एक घन की कोर की लंबाई 8cm है। इसके दो कोनों के बीच की अधिकतम संभव दूरी कितनी होगी?

(1) 8 cm

(2) $8\sqrt{2}$ cm

(3) 16 cm

(4) $8\sqrt{3}$ cm ✔

Q.120 12 men and 10 women can complete a piece of work in 9 days, and 15 men and 3 women can complete the same work in 11 days. Find how many women's work is equivalent to one man's work.

12 पुरुष और 10 महिलाएँ किसी कार्य को 9 दिनों में पूरा कर सकते हैं, और 15 पुरुष और 3 महिलाएँ उसी कार्य को 11 दिनों में पूरा कर सकते हैं। ज्ञात कीजिए कि एक पुरुष का कार्य कितनी महिलाओं के कार्य के बराबर है।

(1) 1 ✔

(2) 3

(3) 5

(4) 2

English Language and Comprehension

Q.121 Choose the sentence that uses the correct simple past tense.

(1) The door opened while we talked. ✔

(2) The door had been opening while we talked.

(3) The door is opened while we talked.

(4) The door had opened while we talked.

Q.122 Choose the most appropriate option to complete the sentence:

By this time next week, I _____ my final exams.

(1) will be finishing

(2) will finish

(3) finish

(4) will have finished ✔

Q.123 Choose the correct option which can be substituted for the following.

A word formed by combining the initial letters of a phrase and pronounced as a single word

(1) Palindrome

(2) Anagram

(3) Abbreviation

(4) Acronym ✔

Q.124 Select the most appropriate adjective to fill in the blank.

The scientist's _____ discovery changed the course of modern medicine.

(1) painstaking

(2) intermittent

(3) preliminary

(4) groundbreaking ✔

Q.125 Choose the correct word to complete the sentence.

The chemist handled the acid ___ to avoid any accidents.

(1) bravely

(2) accidentally

(3) carelessly

(4) carefully ✔

Q.126 Complete the following sentence using the most appropriate option.
Manish wants to buy _____ unique antique piece for his collection.

(1) a ✔
(2) an
(3) no article
(4) the

Q.127 Select the option that can be used as a one-word substitute for the given group of words.
A branch of medicine that deals with the problems of the old

(1) Geriatrics ✔
(2) Granary
(3) Stoicism
(4) Idolatry

Q.128 Fill in the blank with the most appropriate option.
The minister spoke _____ to calm the angry crowd.

(1) loudly
(2) rarely
(3) gently ✔
(4) quickly

Q.129 Select the option that can be used as a one-word substitute for the given group of words:
A person who strongly opposes generally accepted beliefs and traditions.

(1) Heretic
(2) Iconoclast ✔
(3) Pessimist
(4) Reformer

Q.130 The following sentence has been split into segments. Arrange the segments in the correct order to form a meaningful sentence.
English / and / a / month / me / mathematics / thrice /she / taught

(1) Me taught she English and mathematics thrice a month.
(2) She taught me English and mathematics thrice a month. ✔
(3) Mathematics and English she taught me thrice a month.
(4) Thrice a month she English and mathematics taught me.

Q.131 Rearrange the given segments to form a coherent statement. The first segment is fixed.
(O) During the class, (P) with real-life examples (Q) the teacher explained the concept (R) to help students understand (S) in a simple manner

(1) ORPQS
(2) OPQRS
(3) OQSPR ✔
(4) OSPQR

QuickSarkari.com | WhatsApp Channel | Telegram: t.me/quick_sarkari

Q.132 In the given question, a statement divided into different segments is given. Rearrange all the segments to form a coherent statement.
and preparing for the worst outcome (O) / it is remarkable to meet with success (P) / because chance happenings (Q) / are the spice of life (R) / when one is actually expecting failure (S).

(1) PRSQO
(2) PSOQR ✔
(3) SPQOR
(4) ROQSP

Q.133 Choose the correct article to complete the sentence He is _____ best student in our class.

(1) No article
(2) a
(3) the ✔
(4) an

Q.134 Parts of a sentence are given below. While the first part (A1) is fixed, the remaining parts are jumbled up. Arrange the parts in the correct order to form a meaningful and coherent sentence.
(A1) The education department's / (A) a part of the Independence Day / (B) in protecting our environment / (C) initiative to make tree plantations / (D) celebration is indeed helpful

(1) CADB ✔
(2) ABDC
(3) DACB
(4) BCAD

Q.135 Select the most appropriate one-word substitute for the underlined segment in the given sentence:
The artist was praised for her newness and originality in creating beautiful paintings.

(1) Precision
(2) Creativity ✔
(3) Mastery
(4) Ingenuity

Q.136 What can readers infer about the characters in Hayavadana?

(1) They remain completely satisfied with their ordinary lives.
(2) They avoid forming emotional relationships with other people.
(3) They struggle with identity, love, and personal fulfilment. ✔
(4) They refuse to question their beliefs about human nature.

Q.137 Which statement from the passage is a fact?

(1) The play presents the most realistic characters in drama.
(2) Hayavadana is a man who has the head of a horse. ✔
(3) The audience feels sympathy for every character in the play.
(4) The story proves that physical beauty is more important.

Q.138 What real-world issue does the play mainly connect to?

(1) The human search for identity and emotional completeness. ✔

(2) The influence of science on modern forms of communication.

(3) The effects of industrial growth on traditional communities.

(4) The importance of competition in achieving social recognition.

Q.139 Choose the central theme of "Hayavadana" from the options given.

(1) The challenges of adapting to rapid technological progress.

(2) The conflict between physical appearance and inner identity. ✔

(3) The importance of wealth in maintaining lasting friendships.

(4) The role of politics in shaping cultural traditions.

Q.140 Choose the antonym of the word "desperate" from the options given.

(1) hopeless

(2) optimistic ✔

(3) advantageous

(4) ridiculous

Q.141 Identify the correct sentence expressed in direct speech.

(1) He said to me, that "I am very tired now."

(2) He said, "That I am very tired now."

(3) He said that, "I am very tired now."

(4) He said, "I am very tired now." ✔

Q.142 Select the option that expresses the given sentence in active voice.

He confessed that a mistake had been made by them. And that not enough had been done to end drug addiction, joblessness, and homelessness.

(1) He confessed that they had made a mistake and that they had not done enough to end drug addiction, joblessness, and homelessness. ✔

(2) "We have made a mistake. Not enough is being done to end drug addiction, joblessness, and homelessness," he confessed.

(3) He confesses that they had made a mistake. Not enough was done to end drug addiction, joblessness, and homelessness."

(4) He agreed, "They made a mistake. Not enough is done to end drug addiction, joblessness, and homelessness."

Q.143 Change the given sentence into active voice.

The final report was prepared by the research team last week.

(1) The research team was prepared the final report last week.

(2) The research team is prepared the final report last week.

(3) The research team prepared the final report last week. ✔

(4) The research team prepare the final report last week.

Q.144 Substitute the word segment (underlined) with the most appropriate option.
He was very amused by the playful antics of the puppy, who kept chasing its tail.

(1) seeing eye to eye
(2) kicking the bucket
(3) tickled pink ✔
(4) hanging in there

Q.145 Replace the highlighted phrase with the correct proverb from the options given.
She advised her brother not to rush into marriage, reminding him that important tasks cannot be done in a hurry.

(1) make hay while the sun shines
(2) do not bite the hand that feeds you
(3) the early bird catches the worm
(4) Rome was not built in a day ✔

Q.146 Rectify the sentence by selecting the correct spelling from the options.
The Govenor announced new policies to improve education and healthcare across the state.

(1) Governor ✔
(2) Governar
(3) Goveronor
(4) Governer

Q.147 Rectify the sentence by selecting the correct spelling from the options.
We must adress the issue before it gets worse.

(1) Addres
(2) Addrees
(3) Adres
(4) Address ✔

Q.148 Choose the antonym of the underlined word in the sentence below.
The river was shallow near the shore.

(1) long
(2) wide
(3) narrow
(4) deep ✔

Q.149 Replace the highlighted phrase with the correct idiom from the options given.
The unexpected question in the interview completely confused and puzzled the candidate.

(1) took him to task
(2) threw him off balance ✔
(3) brought him to light
(4) put him in the picture

QuickSarkari.com | WhatsApp Channel | Telegram: t.me/quick_sarkari

Q.150 Choose the correct form of Future tense.
He informed us that he had already spoken to the director regarding the new proposal.

(1) He informed us that he was already speaking to the director regarding the new proposal.
(2) He informed us that he already speaks to the director regarding the new proposal.
(3) **He will inform us that he will have already spoken to the director regarding the new proposal. ✔**
(4) He informed us that he has already spoken to the director regarding the new proposal.

Q.151 Replace the highlighted word-segment with the most appropriate proverb.
Riya kept reminding her brother that getting angry easily will only make situations worse in the long run.

(1) birds of a feather flock together
(2) Rome was not built in a day
(3) **anger is one letter short of danger ✔**
(4) a stitch in time saves nine

Q.152 Select the most appropriate ANTONYM of the underlined word.
His abrasive behaviour brought shame to our family.

(1) importune
(2) **delightful ✔**
(3) spiny
(4) jangling

Q.153 Identify the antonym of the word underlined in the following sentence.
The CEO's candor was unexpected during the board meeting.

(1) Transparency
(2) Integrity
(3) Sincerity
(4) **Evasion ✔**

Q.154 Direct: The principal said, "Had I known about your project earlier, I would have extended the deadline."
Choose the correct indirect form for the above sentence.

(1) The principal said that he would have known about our project if we had extended the deadline.
(2) **The principal said that if he had known about our project earlier, he would have extended the deadline. ✔**
(3) The principal said that if he knew about our project earlier, he would extend the deadline.
(4) The principal said he knew about our project earlier and extended the deadline.

Q.155 Identify the antonym of the word (perish) in the following sentence.
Though many feared the animals would die or simply vanish in the floodwaters, a few managed to live through the chaos, while others were found barely breathing but not yet extinct. Some even seemed likely to perish, but survived against all odds.

(1) vanish
(2) extinct
(3) **live ✔**
(4) die

Q.156 What can be inferred about dolphins from the passage?

(1) They prefer living separately from their families

(2) They avoid communication with other sea animals

(3) They depend completely on humans for survival

(4) **They live among intelligent and caring social groups ✔**

Q.157 How were dolphins viewed in the ancient Roman society?

(1) **As symbols of friendship, safety, and protection ✔**

(2) As useful animals mainly hunted for their meat

(3) As dangerous creatures that frightened sailors

(4) As ordinary animals found in the sea regularly

Q.158 Which action best supports the message of the passage?

(1) Expanding industries close to important coastal regions

(2) Increasing fishing activities in crowded ocean areas

(3) **Reducing plastic waste and protecting marine habitats ✔**

(4) Capturing dolphins regularly for entertainment programs

Q.159 Why does the author discuss human greed and superiority?

(1) To compare ancient societies with modern civilizations

(2) **To explain why marine animals are often mistreated ✔**

(3) To describe how dolphins became popular worldwide

(4) To show how oceans support different living species

Q.160 Choose the antonym of the word “remind”.

(1) **disregard ✔**

(2) disclose

(3) recur

(4) rejuvenate

Hindi Language and Comprehension

Q.161 सीता .....बाज़ार से सब्जी खरीदी ।

उपर्युक्त वाक्य में रिक्त स्थान की पूर्ति के लिए उचित कारक शब्द का चयन करें –

(1) में

(2) से

(3) का

(4) **ने ✔**

Q.162 वाक्य विन्यास की दृष्टि से दिये गये वाक्य के शुद्ध रूप का चयन करें— रोज़ाना बच्चों के लिए खेलना और पढ़ना बहुत ज़रूरी है होता।

(1) रोज़ाना खेलना और पढ़ना बहुत ज़रूरी बच्चों के लिए होता है।

(2) बच्चों के लिए बहुत ज़रूरी होता है रोज़ाना खेलना और पढ़ना।

(3) **बच्चों के लिए रोज़ाना खेलना और पढ़ना बहुत ज़रूरी होता है। ✔**

(4) बच्चों के लिए रोज़ाना खेलना और पढ़ना बहुत होता है ज़रूरी।

Q.163 निम्नलिखित वाक्य को उचित प्रेरणार्थक क्रिया द्वारा पूर्ण करें।
अब तुमको यह कमरा ____ है।

(1) खुलना
(2) देखा
(3) सजता
(4) **बनवाना ✔**

Q.164 'जो खाने योग्य हो'
उपर्युक्त वाक्यांश के लिए एक सार्थक शब्द चुनें –

(1) भोजन
(2) **खाद्य ✔**
(3) पौष्टिक
(4) पाचक

Q.165 दिये गये वाक्य को पूर्ण करने के लिए सबसे उपयुक्त विकल्प का चयन करें- 'पिता ने मुझे नया कंप्यूटर _____।'

(1) दिलाये
(2) दिलाएंगे
(3) दिलाते है
(4) **दिलाया ✔**

Q.166 नीचे दिए गए वाक्य खंडों को सही क्रम में व्यवस्थित कीजिए –
1. पर आ
2. चीरकर
3. जाते हैं
4. हम रैड रोड
5. सारी भीड़

(1) **52413 ✔**
(2) 52134
(3) 45213
(4) 24135

Q.167 'जो कठिनाई से समझ में आए' वाक्यांश के लिए एक शब्द होगा--

(1) **दुर्बोध ✔**
(2) दुर्लभ
(3) दुर्दांत
(4) दुर्लंघ्य

Q.168 निम्नलिखित वाक्य में उचित क्रिया का प्रयोग कर वाक्य पूर्ण करें- 'पपीहा है।'

(1) भागना
(2) जाना
(3) **उड़ रहा ✔**
(4) पढ़ना

QuickSarkari.com | WhatsApp Channel | Telegram: t.me/quick_sarkari

Q.169 'लतिका.....सोचती है' वाक्य में चिह्नित रिक्त-स्थान के लिए सर्वाधिक उपयुक्त क्रियाविशेषण पद का चयन करें -

(1) भी
(2) और माधवी
(3) ही
(4) **ध्यानपूर्वक ✔**

Q.170 सर्वोचित प्रेरणार्थक क्रिया शब्द से दिए गए वाक्य का रिक्त स्थान पूर्ण करें— मेरी बहन रोज़ शाम को एक कविता ..... है।

(1) देखती
(2) सजवाती
(3) **लिखवाती ✔**
(4) लिखती

Q.171 निम्नलिखित विकल्पों में से सही विकल्प का चयन कर वाक्य पूर्ण करें।
आज मुझे कढ़ी-चावल खाना है। इस वाक्य में 'खाना'_____क्रिया है।

(1) **सकर्मक क्रिया ✔**
(2) भाववाचक क्रिया
(3) अकर्मक क्रिया
(4) सहायक क्रिया

Q.172 निम्नलिखित विकल्पों में से उपयुक्त विशेषण का चयन कर वाक्य पूर्ण करें ।
सुबह का सूरज_____किरणें बिखेर रहा था।

(1) बैंगनी
(2) **सुनहरी ✔**
(3) पीली
(4) केसरी

Q.173 निम्नलिखित विकल्पों में से कौन-सा वाक्य क्रम सही है?

(1) हमारे पुराने मकान से बड़ा है यह मकान।
(2) मकान से बड़ा है यह मकान हमारे पुराने।
(3) पुराने मकान से बड़ा है यह मकान हमारे।
(4) **यह मकान हमारे पुराने मकान से बड़ा है। ✔**

Q.174 सर्वोचित कारक चिह्न से वाक्य का रिक्त स्थान पूर्ण करें-- 'नेहा ने फातिमा ..... क़लम दी |'

(1) से
(2) की
(3) पर
(4) **को ✔**

Q.175 निम्नलिखित वाक्य में शुद्ध वाक्य का चयन करें-

(1) स्वयंभू के हैं हिंदी सर्वोत्तम कवि।
(2) **स्वयंभू हिंदी के सर्वोत्तम कवि हैं। ✔**
(3) सर्वोत्तम हैं हिंदी के कवि स्वयंभू।
(4) हिंदी के कवि हैं सर्वोत्तम स्वयंभू।

QuickSarkari.com | WhatsApp Channel | Telegram: t.me/quick_sarkari

Q.176 गद्यांश के अनुसार भारतीय संस्कृति के कौन से मूल्य सर्वोपरि हैं?

(1) अहिंसा और सहिष्णुता ✔

(2) भौतिक संपत्ति और शक्ति

(3) प्रतिस्पर्धा और व्यक्तिवाद

(4) आधुनिकता और वैश्वीकरण

Q.177 गद्यांश के अनुसार सांस्कृतिक मूल्य किसके निर्माण में आधारभूत भूमिका निभाते हैं?

(1) विदेशी संस्कृतियों का विकास

(2) सामाजिक विद्रोह

(3) देश की राजनीति

(4) व्यक्ति के चरित्र ✔

Q.178 सांस्कृतिक मूल्य समाज में क्या स्थापित करते हैं?

(1) केवल धार्मिक आस्था

(2) आर्थिक पतन

(3) सामाजिक समरसता ✔

(4) केवल व्यक्तिगत लाभ

Q.179 निम्न में से कौन-सा परिणाम गद्यांश के अनुसार सांस्कृतिक मूल्यों के पतन से जुड़ा नहीं है?

(1) पर्यावरण असंवेदनशीलता

(2) तकनीकी प्रगति ✔

(3) नैतिक पतन

(4) सामाजिक विघटन

Q.180 गद्यांश के अनुसार, सांस्कृतिक मूल्यों की पुनर्स्थापना में किसकी भूमिका अनिवार्य है?

(1) शिक्षा प्रणाली ✔

(2) केवल धर्मगुरु

(3) केवल सरकार

(4) केवल व्यक्ति

Q.181 निम्नलिखित विकल्पों में से अनेकार्थी शब्द 'निष्कर्ष' का एक अर्थ है ?

(1) चोर

(2) त्याग

(3) शिव

(4) सारांश ✔

Q.182 'क्षुद्र नदी भरि चली इतराई' लोकोक्ति का सही तात्पर्य है-

(1) मूर्खतापूर्ण व्यवहार करना।

(2) अयोग्य होना।

(3) छोटे व्यक्ति अधिक इतराते हैं। ✔

(4) चतुराई से प्रदर्शन करना

Q.183 इस वाक्य में एक वर्तनी संबंधी त्रुटि है उसकी पहचान कर वाक्य शुद्ध करें।
गाँव के लोगों में यह मान्यता है कि सुनसान जगहों पर पिसाच का निवास होता है।

(1) पिसाच ✔
(2) निवास
(3) मान्यता
(4) सुनसान

Q.184 निम्नलिखित विकल्पों में से दिए गए मुहावरा के सही अर्थ की पहचान कीजिए।
'ठन-ठन गोपाल होना'

(1) हजम कर जाना
(2) मस्ती में सूफियों जैसा व्यवहार करना
(3) गुस्से में बर्तन पटकना
(4) पूरी तरह जेब खाली होना ✔

Q.185 निम्नलिखित विकल्पों में से कौन सा तत्सम-तद्भव शब्द-युग्म अशुद्ध है?

(1) क्षुर-खुर
(2) क्षार-खाद
(3) गुफा-गोत ✔
(4) कंदुक-गेंद

Q.186 सर्वोचित विशेषण शब्द से दिए गये वाक्य का रिक्त स्थान पूर्ण करें-- इन दिनों बहुत .... गर्मी पड़ रही है।

(1) कठोर
(2) तीव्र ✔
(3) भली
(4) अत्यधिक

Q.187 दिए गए विकल्पों में से 'नैहर ' का तत्सम शब्द चुनिए ।

(1) ज्ञातिगृह ✔
(2) निघाति
(3) निर्वहण
(4) निष्ठुर

Q.188 'उठ' का तत्सम शब्द है-

(1) ऊँट
(2) उष्ट्र
(3) उपत्यका
(4) उत्तिष्ठ ✔

Q.189 'अंधेरे घर का उजाला'- मुहावरे का उचित अर्थ क्या है?

(1) असफल होना
(2) सहर्ष स्वीकार करना
(3) एकमात्र सहारा ✔
(4) अरमान पूरे न होना

Q.190 निम्न में से तद्भव शब्द पहचानें--

(1) अमृत

(2) अमूल्य

(3) **अखरोट ✔**

(4) आखेट

Q.191 निम्नलिखित वाक्यांश में कनक के अर्थ बताइए 'कनक कनक ते सौ गुनी, मादकता अधिकाय।
या खाइ बौराय मन, या पाई बौराय।।'

(1) सिर्फ पीला रंग, गेहूँ के दाने

(2) **सोना, धतूरा ✔**

(3) केसर, गाय का घी

(4) कमल, कन्या/बालिका

Q.192 नीचे दिए गए वाक्य में चार विकल्पों में से कोई एक सही विकल्प का चुनाव कर क्रिया विशेषण द्वारा वाक्य को पूर्ण करें।
वर्षा _____हो रही है।

(1) परसों

(2) दरअसल

(3) **निरन्तर ✔**

(4) तत्काल

Q.193 'चौरासी' का तत्सम है-

(1) चतुष्काठ

(2) चतुर्दश

(3) चतुर्विंशति

(4) **चतुरशीति ✔**

Q.194 निम्नलिखित विकल्पों में से सही विशेषण का चयन करें।
सांप की केंचुल बहुत _____ है।

(1) नामचीन

(2) अर्वाचीन

(3) **चमकीली ✔**

(4) प्राचीन

Q.195 निम्नलिखित में से शुद्ध वाक्य का चयन करें-

(1) **द्विवेदी युग को जागरण सुधार काल भी कहा जाता है। ✔**

(2) द्विवेदी युग को कहा जाता है जागरण सुधार काल।

(3) काल को जागरण सुधार भी कहा जाता है द्विवेदी युग।

(4) जागरण सुधार काल भी कहा जाता है द्विवेदी युग को।

Q.196 दिए गए गद्यांश के लिए सर्वाधिक उपयुक्त शीर्षक चुनें -

(1) संक्रान्ति-भाव

(2) **संक्रान्ति-पर्व ✔**

(3) संक्रान्ति-लक्षण

(4) संक्रान्ति-तिथि

QuickSarkari.com | WhatsApp Channel | Telegram: t.me/quick_sarkari

Q.197 दिए गए गद्यांश का निष्कर्ष क्या है?

(1) प्रकृति और त्योहार का सम्बन्ध बताना ✔

(2) मनुष्य और प्रकृति की प्रतिस्पर्धा बताना

(3) मनुष्य और प्रकृति का असंतुलन बताना

(4) मनुष्य और प्रकृति का विरोध बताना

Q.198 गद्यांश में प्रयुक्त 'पर्व' का पर्यायवाची क्या होता है?

(1) उत्सव ✔

(2) पूजा

(3) अनुष्ठान

(4) व्रत

Q.199 गद्यांश में प्रयुक्त 'उत्सर्ग' शब्द का अर्थ क्या होता है?

(1) छिपाना

(2) दान ✔

(3) ग्रहण

(4) समर्पण

Q.200 दिए गए गद्यांश की संरचना किस प्रकार की है?

(1) आलोचनात्मक

(2) नाटकीय

(3) काव्यात्मक

(4) निबंधात्मक ✔

Answer Key / उत्तर कुंजी

1 2	2 4	3 3	4 1	5 2	6 2	7 3	8 2	9 4	10 4	11 1	12 4	13 2	14 1	15 1
16 2	17 2	18 2	19 3	20 1	21 1	22 4	23 4	24 4	25 3	26 1	27 1	28 2	29 2	30 4
31 4	32 1	33 2	34 2	35 1	36 3	37 2	38 3	39 4	40 1	41 4	42 3	43 2	44 2	45 1
46 1	47 4	48 3	49 4	50 3	51 1	52 1	53 1	54 1	55 2	56 2	57 3	58 1	59 1	60 2
61 4	62 1	63 3	64 2	65 1	66 2	67 4	68 3	69 3	70 1	71 2	72 4	73 1	74 2	75 2
76 2	77 3	78 4	79 4	80 3	81 4	82 1	83 2	84 1	85 1	86 3	87 1	88 2	89 4	90 2
91 1	92 2	93 1	94 2	95 3	96 1	97 4	98 1	99 3	100 3	101 1	102 3	103 4	104 2	105 4
106 1	107 4	108 2	109 3	110 2	111 1	112 3	113 1	114 2	115 1	116 2	117 4	118 4	119 4	120 1
121 1	122 4	123 4	124 4	125 4	126 1	127 1	128 3	129 2	130 2	131 3	132 2	133 3	134 1	135 2
136 3	137 2	138 1	139 2	140 2	141 4	142 1	143 3	144 3	145 4	146 1	147 4	148 4	149 2	150 3
151 3	152 2	153 4	154 2	155 3	156 4	157 1	158 3	159 2	160 1	161 4	162 3	163 4	164 2	165 4

166 1	**167** 1	**168** 3	**169** 4	**170** 3	**171** 1	**172** 2	**173** 4	**174** 4	**175** 2	**176** 1	**177** 4	**178** 3	**179** 2	**180** 1
181 4	**182** 3	**183** 1	**184** 4	**185** 3	**186** 2	**187** 1	**188** 4	**189** 3	**190** 3	**191** 2	**192** 3	**193** 4	**194** 3	**195** 1
196 2	**197** 1	**198** 1	**199** 2	**200** 4										

Quick Sarkari

Quick Sarkari

Thank you for studying with QuickSarkari!

Get the latest Sarkari Naukri notifications, admit cards, results, answer keys and free previous-year papers first - follow us on WhatsApp and Telegram.

Visit www.quicksarkari.com

Join our WhatsApp Channel

https://whatsapp.com/channel/0029VaxxbrREquiPoXTWM229

Join our Telegram Channel

https://t.me/quick_sarkari

Share this PDF with your friends preparing for DSSSB exams.