DSSSB PREVIOUS YEAR PAPER WITH ANSWER KEY

DSSSB Forest Guard

14 July 2026 · Shift 1

डीएसएसएसबी वन रक्षक – 14 जुलाई 2026, शिफ्ट 1 का प्रश्न पत्र, उत्तर कुंजी सहित

200	120 min	1 / −0.25	EN + HI
Questions / प्रश्न	Duration / समय	Marks per Q / अंक	Language / भाषा

Sections: General Intelligence and Reasoning Ability, General Awareness, Arithmetical and Numerical Ability, English Language and Comprehension, Hindi Language and Comprehension

INSIDE THIS PDF / इस PDF में

Question Paper in English + Hindi with Answer Key (correct option marked in green) + answer table Page 2–44
प्रश्न पत्र अंग्रेज़ी + हिंदी में, उत्तर कुंजी सहित (सही विकल्प हरे रंग में) + उत्तर तालिका

HOW TO USE THIS PAPER / इस पेपर का उपयोग कैसे करें

1. Attempt the paper first as a timed online mock test (link below).
   पहले नीचे दिए लिंक से इसे टाइमर के साथ ऑनलाइन मॉक टेस्ट के रूप में हल करें।
2. Check your score, section-wise analysis and solutions online.
   ऑनलाइन अपना स्कोर, खंड-वार विश्लेषण और हल देखें।
3. Use this PDF for revision. Correct answers are shown in green.
   दोहराने के लिए इस PDF का उपयोग करें। सही उत्तर हरे रंग में दिए गए हैं।

Attempt this paper as a FREE online mock test

इस पेपर को फ्री ऑनलाइन मॉक टेस्ट के रूप में हल करें – टाइमर, स्कोर और हल के साथ

https://quicksarkari.com/dsssb-forest-guard-14-july-2026-shift-1-mock-test/

All DSSSB Forest Guard papers and mock tests: **quicksarkari.com/dsssb-mock-test/#forest-guard**

Join WhatsApp Channel | Join Telegram Channel

DSSSB Forest Guard – Question Paper (English + Hindi)

DSSSB वन रक्षक – प्रश्न पत्र (अंग्रेज़ी + हिंदी)

Exam held on 14 July 2026, Shift 1 · 200 questions · correct answers marked ✔ in green
परीक्षा तिथि 14 जुलाई 2026, शिफ्ट 1 · 200 प्रश्न · सही उत्तर हरे रंग में ✔ से चिह्नित

> The official paper for this shift was in Hindi. The English version of each question is a translation prepared by QuickSarkari; the language-section questions are shown as asked.
> इस शिफ्ट का आधिकारिक प्रश्न पत्र हिंदी में था। प्रत्येक प्रश्न का अंग्रेज़ी संस्करण QuickSarkari द्वारा तैयार किया गया अनुवाद है; भाषा खंड के प्रश्न मूल रूप में दिए गए हैं।

General Intelligence and Reasoning Ability

Q.1 The exams of seven candidates, R, S, T, V, W, X and Y, are scheduled on different days of the same week starting from Monday and ending on Sunday. Exactly two candidates' exams are scheduled before X. Only one candidate's exam is scheduled after V. Exactly three candidates' exams are scheduled between X and T. Only one candidate's exam is scheduled between S and Y. W's exam is scheduled immediately before S's exam. How many candidates' exams are scheduled between R and S?

सात अभ्यर्थियों, R, S, T, V, W, X, और Y, की परीक्षाएं सोमवार से शुरू होकर रविवार को समाप्त होने वाले उसी सप्ताह के अलग-अलग दिन निर्धारित हैं। X से पहले ठीक दो अभ्यर्थियों की परीक्षाएं निर्धारित हैं। V के बाद केवल एक अभ्यर्थी की परीक्षा निर्धारित है। X और T के बीच ठीक तीन अभ्यर्थियों की परीक्षाएं निर्धारित हैं। S और Y के बीच केवल एक अभ्यर्थी की परीक्षा निर्धारित है। W की परीक्षा, S की परीक्षा से ठीक पहले निर्धारित है। R और S के बीच कितने अभ्यर्थियों की परीक्षाएं निर्धारित हैं?

(1) None / किसी की भी नहीं
(2) **Two / दो ✔**
(3) Three / तीन
(4) One / एक

Q.2 In a code language, 'BLUE' is coded as 'DOWH' and 'PINK' is coded as 'RLPN'. How will 'RED' be coded in the same language?

एक कूट भाषा में, 'BLUE' को 'DOWH' के रूप में तथा 'PINK' को 'RLPN' के रूप में कूटबद्ध किया जाता है। उसी भाषा में 'RED' को कैसे कूटबद्ध किया जाएगा?

(1) TGL
(2) SFL
(3) **THF ✔**
(4) TGK

Q.3 In a certain code language, 'DREAM' is coded as RDMEA and 'CLOSE' is coded as LCEOS. How will 'GRANT' be coded in the same language?

किसी कूट भाषा में, 'DREAM' को RDMEA के रूप में कूटबद्ध किया जाता है और 'CLOSE' को LCEOS के रूप में कूटबद्ध किया जाता है। उसी भाषा में 'GRANT' को किस प्रकार कूटबद्ध किया जाएगा?

(1) RNGTA
(2) RANGT
(3) **RGTAN ✔**
(4) RGANT

Q.4 This question is based on the five three-digit numbers given below.
(Left) 741 753 789 357 321 (Right)
(Example- 697 – First digit = 6, second digit = 9 and third digit = 7)
Note - All operations are to be done from left to right.
What will be the result when the second digit of the largest number is added to the second digit of the smallest number?

यह प्रश्न नीचे दी गई पाँच, तीन-अंकीय संख्यायों पर आधारित है।
(बाएं) 741 753 789 357 321 (दाएं)
(उदाहरण- 697 – पहला अंक = 6, दूसरा अंक = 9 और तीसरा अंक = 7)
नोट - सभी संक्रियाएं बाएं से दाएं की जानी चाहिए।
सबसे बड़ी संख्या के दूसरे अंक में सबसे छोटी संख्या के दूसरे अंक का योग करने पर प्राप्त परिणाम ज्ञात कीजिए।

(1) 10 ✔
(2) 8
(3) 6
(4) 7

Q.5 Six boxes G, H, I, J, K and L are kept one above the other, but not necessarily in the same order. Only one box is kept between H and J, and J is kept at the bottom. Only two boxes are kept between H and L. G is kept immediately below L. Only two boxes are kept between G and I. Which box is kept third from the top?

छह बॉक्स G, H, I, J, K और L एक के ऊपर एक रखे गए हैं, लेकिन यह आवश्यक नहीं है कि वे इसी क्रम में रखे गए हों। H और J के बीच केवल एक बॉक्स रखा गया है, और J को सबसे नीचे रखा गया है। H और L के बीच केवल दो बॉक्स रखे गए हैं। G को L के ठीक नीचे रखा गया है। G और I के बीच केवल दो बॉक्स रखे गए है। सबसे ऊपर से तीसरे स्थान पर किस बॉक्स को रखा गया है?

(1) J
(2) I
(3) G
(4) K ✔

Q.6 In a certain code language, 'LOPE' is coded as '3597' and 'GLOP' is coded as '7356'. What is the code for 'G' in the given code language?

एक निश्चित कूट भाषा में, 'LOPE' को '3597' और 'GLOP' को '7356' के रूप में कूटबद्ध किया गया है। दी गई कूट भाषा में 'G' का कूट क्या होगा?

(1) 5
(2) 3
(3) 7
(4) 6 ✔

Q.7 DK24 is related to IP26 in a certain way based on the English alphabetical order. In the same way, AP15 is related to FU17. Following the same logic, CF12 is related to which of the given options?

अंग्रेजी वर्णमाला क्रम के आधार पर एक निश्चित तरीके से, DK24 का संबंध IP26 से है। उसी प्रकार, AP15 का संबंध FU17 से है। समान तर्क का अनुसरण करते हुए, CF12 का संबंध दिए गए विकल्पों में से किससे है?

(1) HK14 ✔
(2) IL14
(3) IK14
(4) HL14

Q.8 NJHD is related to FBZV in a certain way based on the English alphabetical order. In the same way, RNLH is related to JFDZ. Following the same logic, EAYU is related to which of the following?

अंग्रेजी वर्णमाला क्रम के आधार पर, एक निश्चित तरीके से, NJHD का संबंध FBZV से है। उसी तरीके से, RNLH का संबंध JFDZ से है। समान तर्क का अनुसरण करते हुए, EAYU का संबंध निम्नलिखित में से किससे है?

(1) WSQM ✔

(2) WTPR

(3) WRPM

(4) WSPM

Q.9 Seven people Geetika, Kunika, Mahesh, Nikku, Sunil, Tiya and Yash are sitting around a circular table facing the centre. Yash is the immediate neighbour of both Kunika and Mahesh and second to the left of Nikku. Kunika sits second to the right of Geetika. Tiya is not the immediate neighbour of Nikku. How many people sit between Yash and Geetika when counted from the left of Yash?

सात व्यक्ति गीतिका, कुनिका, महेश, निक्कू, सुनील, तिया और यश एक वृत्ताकार मेज के चारों ओर केंद्र की ओर मुख करके बैठे हैं। यश, कुनिका और महेश दोनों का निकटतम पड़ोसी है और निक्कू के बाएं से दूसरे स्थान पर है। कुनिका, गीतिका के दाएं से दूसरे स्थान पर बैठी है। तिया, निक्कू की निकटतम पड़ोसी नहीं है। यश के बाएं से गिनने पर यश और गीतिका के बीच कितने व्यक्ति बैठे हैं?

(1) Two / दो ✔

(2) None / कोई नहीं

(3) One / एक

(4) Three / तीन

Q.10 Seven people, F, G, H, I, O, P and Q are sitting in a row, facing north.
Only two people sit between Q and O. Only I sits to the right of P. Only one person sits between O and P. G sits at some place to the right of F but at some place to the left of H.
How many people sit between H and F?

सात व्यक्ति, F, G, H, I, O, P और Q एक पंक्ति में उत्तर की ओर मुख करके बैठे हैं।
Q और O के बीच केवल दो व्यक्ति बैठे हैं। P के दाईं ओर केवल I बैठा है। O और P के बीच केवल एक व्यक्ति बैठा है। G, F के दाईं ओर किसी स्थान पर, लेकिन H के बाईं ओर किसी स्थान पर बैठा है।
H और F के बीच कितने व्यक्ति बैठे हैं?

(1) Three / तीन

(2) None / कोई नहीं

(3) Two / दो ✔

(4) One / एक

Q.11 Each of P, Q, R, S, T, U and V has an exam on a different day of the same week starting from Monday and ending on Sunday. Only two persons have their exams before T. V's exam is on the day immediately after T but on some day before Q. S's exam is on some day before T but after R. U's exam is on some day before P but after Q. Who has the exam on Sunday?

P, Q, R, S, T, U और V में से प्रत्येक की परीक्षा सोमवार से शुरू होकर रविवार को समाप्त होने वाले एक ही सप्ताह के अलग-अलग दिन है। T से पहले केवल दो व्यक्तियों की परीक्षा है। V की परीक्षा T के ठीक बाद लेकिन Q से पहले किसी दिन है। S की परीक्षा T से पहले लेकिन R के बाद किसी दिन है। U की परीक्षा P से पहले लेकिन Q के बाद किसी दिन है। रविवार को किसकी परीक्षा है?

(1) R

(2) U

(3) P ✔

(4) Q

Q.12 Which of the following letter-clusters should replace # and % so that the pattern and relationship followed between the letter-cluster pair on the left side of :: is the same as that on the right side of ::?
: MNB :: TCS : %

निम्नलिखित में से किस अक्षर-समूह द्वारा # और % को प्रतिस्थापित किया जाना चाहिए ताकि :: के बाईं ओर के अक्षर-समूह युग्म के बीच अनुसरण किया गया पैटर्न और संबंध, :: के दाईं ओर के अक्षर-समूह युग्म के बीच अनुसरण किए गए पैटर्न और संबंध के समान हो?
: MNB :: TCS : %

(1) # = IKO , % = WET
(2) **# = JLA , % = WET ✔**
(3) # = JLA , % = VFS
(4) # = DGI , % = VES

Q.13 Seven people, Mayan, Nikki, Pihu, Rajesh, Shaurya, Tiya and Vikas, are sitting in a row, facing north. Only two people sit to the right of Rajesh. Nikki sits immediate left of Vikas and Vikas sits third to the left of Rajesh. Pihu sits third to the right of Tiya, but Pihu does not sit at any extreme ends. Rajesh is not an immediate neighbour of Mayan. How many people sit between Tiya and Vikas?

सात व्यक्ति, मायन, निक्की, पीहू, राजेश, शौर्य, तिया और विकास, एक पंक्ति में उत्तर की ओर मुख करके बैठे हैं। राजेश के दाईं ओर केवल दो व्यक्ति बैठे हैं। निक्की, विकास के ठीक बाईं ओर बैठी है और विकास, राजेश के बाईं ओर तीसरे स्थान पर बैठा है। पीहू, तिया के दाईं ओर तीसरे स्थान पर बैठी है, लेकिन पीहू किसी भी अंतिम छोर पर नहीं बैठी है। राजेश, मायन का निकटतम पड़ोसी नहीं है। तिया और विकास के बीच कितने व्यक्ति बैठे हैं?

(1) Three / तीन
(2) Two / दो
(3) **None / कोई नहीं ✔**
(4) One / एक

Q.14 Refer to the following letter series and answer the question that follows. Counting is to be done from left to right only.
(Left) J A K M X Y I H R G Z D Y N R E K U S G S L I A X (Right)
How many such vowels are there, each of which is immediately preceded by a consonant and also immediately followed by a consonant?

निम्नलिखित अक्षर श्रृंखला का संदर्भ लीजिए और दिए गए प्रश्न का उत्तर दीजिए। गिनती केवल बाएं से दाएं की जानी है।
(बाएं) J A K M X Y I H R G Z D Y N R E K U S G S L I A X (दाएं)
ऐसे कितने स्वर हैं, जिनमें से प्रत्येक के ठीक पहले एक व्यंजन है और ठीक बाद में भी एक व्यंजन है?

(1) Two / दो
(2) One / एक
(3) Three / तीन
(4) **Four / चार ✔**

Q.15 The position(s) of how many letters will remain unchanged if each letter in the word VISUAL is arranged in alphabetical order?

यदि शब्द VISUAL के प्रत्येक अक्षर को वर्णमाला क्रम में व्यवस्थित किया जाए, तो कितने अक्षरों का/के स्थान अपरिवर्तित रहेगा/रहेंगे?

(1) Three / तीन
(2) None / एक भी नहीं
(3) Two / दो
(4) **One / एक ✔**

Q.16 In a certain code language, 'A @ B' means 'A is the son of B'
'A & B' means 'A is the mother of B'
'A # B' means 'A is the husband of B'
If 'T @ S # M & K # A', then how is T related to A?
एक निश्चित कूट भाषा में, 'A @ B' का अर्थ है कि 'A, B का पुत्र है'
'A & B' का अर्थ है कि 'A, B की माता है'
'A # B' का अर्थ है कि 'A, B का पति है'
यदि 'T @ S # M & K # A' है, तो T का A से क्या संबंध है?

(1) Father / पिता
(2) Husband's father / पति का पिता
(3) Husband's brother / पति का भाई ✔
(4) Brother / भाई

Q.17 Each of Gaura, Heera, Ishika, Jacob, Kranti, Lalu and Mihika has an exam on a different day of the same week starting from Monday and ending on Sunday. Gaura's exam is on Monday. Only three persons have their exams between Gaura and Kranti. Heera's exam is immediately after Jacob's exam, and Heera's exam is immediately before Ishika's exam. Lalu's exam is not on Sunday. On which day is Lalu's exam?
गौरा, हीरा, इशिका, जैकब, क्रांति, लालू और मिहिका में से प्रत्येक की परीक्षा सोमवार से शुरू होकर रविवार को समाप्त होने वाले एक ही सप्ताह के अलग-अलग दिन है। गौरा की परीक्षा सोमवार को है। गौरा और क्रांति के बीच केवल तीन व्यक्तियों की परीक्षा है। हीरा की परीक्षा, जैकब की परीक्षा के ठीक बाद है, और हीरा की परीक्षा, इशिका की परीक्षा से ठीक पहले है। लालू की परीक्षा रविवार को नहीं है। लालू की परीक्षा किस दिन है?

(1) Wednesday / बुधवार
(2) Tuesday / मंगलवार
(3) Saturday / शनिवार ✔
(4) Sunday / रविवार

Q.18 Refer to the following number and symbol series and answer the question that follows. Counting is to be done from left to right only. (Note: All numbers are single-digit numbers only.)
(Left) @ & / & % $ 1 5 7 2 5 3 # 5 ? 3 ^ + 6 # @ (Right)
How many such symbols are there, each of which is immediately preceded by another symbol and immediately followed by a number?
निम्नलिखित संख्या और प्रतीक श्रृंखला का संदर्भ लीजिए तथा दिए गए प्रश्न का उत्तर दीजिए। गिनती केवल बाएं से दाएं की जानी चाहिए। (नोट: सभी संख्याएं केवल एकल अंकीय संख्याएं हैं।)
(बाएं) @ & / & % $ 1 5 7 2 5 3 # 5 ? 3 ^ + 6 # @ (दाएं)
ऐसे कितने प्रतीक हैं, जिनमें से प्रत्येक के ठीक पहले एक और प्रतीक तथा ठीक बाद एक संख्या है?

(1) One / एक
(2) Three / तीन
(3) Four / चार
(4) Two / दो ✔

Q.19 This question is based on the following words KAB JOB LIB FUN In each word, each vowel is replaced by the letter immediately following it in the English alphabetical order and each consonant is replaced by the letter immediately preceding it in the English alphabetical order. How many of the letter-groups thus formed will have no vowel?

यह प्रश्न निम्नलिखित शब्दों पर आधारित है KAB JOB LIB FUN प्रत्येक शब्द में, प्रत्येक स्वर को अंग्रेजी वर्णमाला क्रम में उसके ठीक बाद आने वाले अक्षर से बदल दिया जाता है और प्रत्येक व्यंजन को अंग्रेजी वर्णमाला क्रम में उसके ठीक पहले आने वाले अक्षर से बदल दिया जाता है। इस प्रकार बने कितने अक्षर-समूहों में कोई स्वर नहीं होगा?

(1) Two / दो
(2) One / एक
(3) Zero / शून्य ✔
(4) Three / तीन

Q.20 Refer to the following letter series and answer the question that follows. (Counting is to be done from left to right only)
(Left) L W G L E H Z U A C Q D B G O I Y A O C J (Right)
How many such vowels are there, each of which is immediately preceded by a consonant and also immediately followed by a consonant?

निम्नलिखित अक्षर श्रृंखला का संदर्भ लीजिए और दिए गए प्रश्न का उत्तर दीजिए। (गिनती केवल बाएं से दाएं की जानी है)
(बाएं) L W G L E H Z U A C Q D B G O I Y A O C J (दाएं)
ऐसे कितने स्वर हैं, जिनमें से प्रत्येक के ठीक पहले एक व्यंजन है और ठीक बाद में भी एक व्यंजन है?

(1) One / एक ✔
(2) Two / दो
(3) None / एक भी नहीं
(4) Three / तीन

Q.21 Each of the digits in the number 94615823 is arranged in ascending order from left to right. The position of how many digits will remain unchanged as compared to that in the original number?

संख्या 94615823 के प्रत्येक अंक को बाएं से दाएं आरोही क्रम में व्यवस्थित किया जाता है। मूल संख्या की तुलना में कितने अंकों का स्थान अपरिवर्तित रहेगा?

(1) Three / तीन
(2) None / एक भी नहीं
(3) Two / दो
(4) One / एक ✔

Q.22 JJH is related to KHI in a certain way based on the English alphabetical order. In the same way, NFL is related to ODM. Following the same logic, KYH is related to which of the given options?

अंग्रेजी वर्णमाला क्रम के आधार पर, JJH किसी निश्चित तरीके से KHI से संबंधित है। उसी तरीके से, NFL, ODM से संबंधित है। समान तर्क का अनुसरण करते हुए, KYH दिए गए विकल्पों में से किससे संबंधित है?

(1) MWI
(2) LUH
(3) LWI ✔
(4) MUH

Q.23 Which two numbers should be interchanged to make the given equation correct?
54 + (36 ÷ 3) + (18 × 4) – 42 = 75 (Note: Interchange should be of the entire number and not of individual digits of a given number.)

दिए गए समीकरण को सही बनाने के लिए किन दो संख्याओं को आपस में बदला जाना चाहिए?
54 + (36 ÷ 3) + (18 × 4) – 42 = 75 (नोट: अदला-बदली पूर्ण संख्या की की जानी चाहिए, न कि दी गई संख्या के अलग-अलग अंकों की।)

(1) 54 and 42 / 54 और 42
(2) 42 and 36 / 42 और 36
(3) 54 and 36 / 54 और 36
(4) 3 and 4 / 3 और 4 ✔

Q.24 Two sets of numbers are given below. In each set of numbers, certain mathematical operations on the first number result in the second number. Similarly, certain mathematical operations on the second number result in the third number and so on. Which of the given options follows the same set of operations as in the given sets?
(NOTE: Operations should be performed on the whole numbers, without breaking down the numbers into their constituent digits. E.g. 13 – Operations on 13 such as adding/subtracting/multiplying etc. to 13 can be performed. Breaking down 13 into 1 and 3 and then performing mathematical operations on 1 and 3 is not allowed.)
10 - 8 - 6 - 4 ; 14 - 12 - 10 - 8

नीचे संख्याओं के दो समुच्चय दिए गए हैं। संख्याओं के प्रत्येक समुच्चय में, पहली संख्या पर कुछ गणितीय संक्रियाएँ करके दूसरी संख्या प्राप्त की गई है। इसी प्रकार, दूसरी संख्या पर कुछ गणितीय संक्रियाएँ करके तीसरी संख्या प्राप्त की गई है और इसी प्रकार आगे भी संख्याएँ प्राप्त की गई हैं। दिए गए विकल्पों में से कौन-सा विकल्प, दिए गए समुच्चयों में अनुसरण की गई संक्रियाओं के समान संक्रियाओं का अनुसरण करता है?
(नोट: संख्याओं को उनके घटक अंकों में तोड़े बिना, पूर्ण संख्याओं पर संक्रियाएँ की जानी चाहिए। उदाहरण के लिए 13 को लीजिए - 13 पर संक्रियाएँ जैसे कि 13 में जोड़ना/घटाना/गुणा करना आदि 13 पर की जा सकती हैं। 13 को 1 व 3 में तोड़ना और फिर 1 व 3 पर गणितीय संक्रियाएँ करने की अनुमति नहीं है।)
10 - 8 - 6 - 4 ; 14 - 12 - 10 - 8

(1) 54 - 52 - 54 - 56
(2) 18 - 16 - 14 - 12 ✔
(3) 22 - 20 - 16 - 14
(4) 64 - 62 - 60 - 56

Q.25 If '+' and 'x' are interchanged and '-' and '÷' are interchanged, then what will come in place of '?' in the following equation?
50 - 5 ÷ 4 + 3 × 6 = ?

यदि '+' और 'x' को परस्पर बदल दिया जाए तथा '-' और '÷' को परस्पर बदल दिया जाए, तो निम्नलिखित समीकरण में '?' के स्थान पर क्या आएगा?
50 - 5 ÷ 4 + 3 × 6 = ?

(1) 14
(2) 9
(3) 4 ✔
(4) 19

Q.26 What should come in place of ? in the given series based on the English alphabetical order?
YRMI SLGC MFAW GZUQ ?
अंग्रेजी वर्णमाला क्रम के आधार पर दी गई श्रृंखला में ? के स्थान पर क्या आना चाहिए?
YRMI SLGC MFAW GZUQ ?

(1) ATKO
(2) ATOK ✔
(3) AKOT
(4) AKTO

Q.27 Three of the following four letter-cluster pairs are alike in a certain way based on the English alphabetical order and thus form a group. Which option does NOT belong to that group?
(Note: The odd letter-cluster pair is not based on the number of consonants/vowels or their position.)
अंग्रेज़ी वर्णमाला क्रम पर आधारित, निम्नलिखित चार अक्षर-समूह युग्मों में से तीन एक निश्चित प्रकार से समान हैं और इस प्रकार एक ग्रुप बनाते हैं। कौन-सा विकल्प, उस ग्रुप से संबंधित नहीं है?
(नोट: असंगत अक्षर-समूह युग्म, व्यंजनों/स्वरों की संख्या या उनकी स्थिति पर आधारित नहीं है।)

(1) VX–YA
(2) OQ–RT
(3) UW–XZ
(4) WY–YD ✔

QuickSarkari.com | WhatsApp Channel | Telegram: t.me/quick_sarkari

Q.28 Identify the figure given in the options which when put in place of ? will logically complete the series.

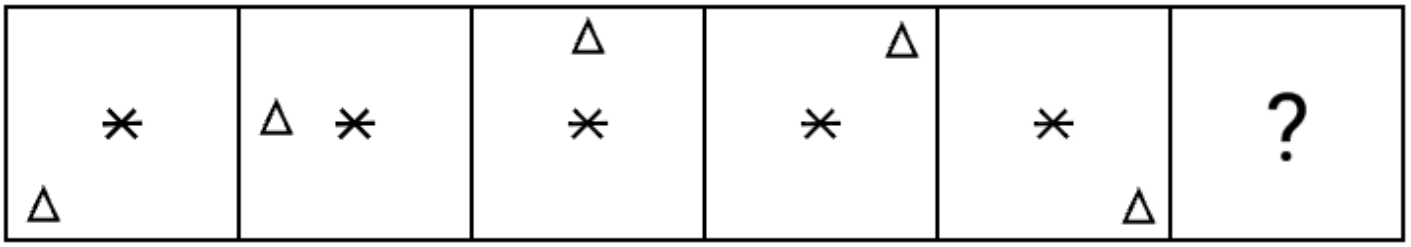

विकल्पों में दी गई आकृतियों में से उस आकृति की पहचान कीजिए जिसे ? के स्थान पर रखने से श्रृंखला तार्किक रूप से पूर्ण हो जाएगी।

(1) 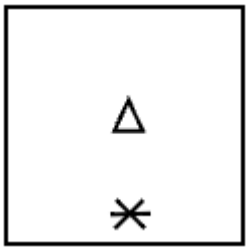

(2) 

(3) 

(4) 

✔

Q.29 Three of the following four letter-cluster pairs are alike in a certain way based on the English alphabetical order and thus form a group. Which letter-cluster pair does NOT belong to that group?
(Note: The odd letter-cluster pair is not based on the number of consonants/vowels or their position.)

अंग्रेजी वर्णमाला के क्रम के आधार पर, निम्नलिखित चार अक्षर-समूह युग्मों में से तीन एक निश्चित प्रकार से समान हैं और इस प्रकार वे एक ग्रुप बनाते हैं। कौन-सा अक्षर-समूह युग्म, उस ग्रुप से संबंधित नहीं है?
(नोट: असंगत अक्षर-समूह युग्म, व्यंजनों/स्वरों की संख्या या उनकी स्थिति पर आधारित नहीं है।)

(1) EC - GE
(2) KI - MK
(3) LJ - NL
(4) **WU - YX ✔**

QuickSarkari.com | WhatsApp Channel | Telegram: t.me/quick_sarkari

Q.30 Three of the following four letter-clusters are alike in a certain way based on the alphabetical order and thus form a group. Which letter-cluster does NOT belong to that group?
(Note: The odd letter-cluster is not based on the number of consonants/vowels or their position)
वर्णमाला क्रम के आधार पर, निम्नलिखित चार अक्षर समूहों में से तीन एक निश्चित तरीके से एकसमान हैं और इस प्रकार वे एक ग्रुप बनाते हैं। कौन-सा अक्षर-समूह उस ग्रुप से संबंधित नहीं है?
(नोट: असंगत अक्षर समूह, व्यंजनों/स्वरों की संख्या या उनकी स्थिति पर आधारित नहीं है)

(1) VTQ
(2) RQM ✔
(3) JHE
(4) CAX

Q.31 If 1 is added to each odd digit and 2 is subtracted from each even digit in the number 7132546, what will be the sum of the highest and lowest digits in the number thus formed?
यदि संख्या 7132546 में प्रत्येक विषम अंक में 1 जोड़ दिया जाए और प्रत्येक सम अंक में से 2 घटा दिया जाए, तो इस प्रकार बनी संख्या के सबसे बड़े और सबसे छोटे अंकों का योग क्या होगा?

(1) 10
(2) 7
(3) 9
(4) 8 ✔

Q.32 If '+' means '–', '–' means '×', '×' means '÷', and '÷' means '+', then what will come in place of the question mark (?) in the following equation?
163 ÷ 32 × 4 – 5 + 22 = ?
यदि '+' का अर्थ '–' है, '–' का अर्थ '×' है, '×' का अर्थ '÷' है, और '÷' का अर्थ '+' है, तो निम्नलिखित समीकरण में प्रश्न-चिह्न (?) के स्थान पर क्या आएगा?
163 ÷ 32 × 4 – 5 + 22 = ?

(1) 181 ✔
(2) 186
(3) 194
(4) 174

Q.33 According to a certain logic, 9 is related to 54. According to the same logic, 14 is related to 89. According to the same logic, 20 is related to which of the following?
(NOTE: Operations should be performed on the whole numbers, without breaking down the numbers into their constituent digits. E.g. 13 – Operations on 13 such as adding/subtracting/multiplying etc. to 13 can be performed. Breaking down 13 into 1 and 3 and then performing mathematical operations on 1 and 3 is not allowed.)
एक निश्चित तर्क के अनुसार, 9 का संबंध 54 से है। उसी तर्क के अनुसार, 14 का संबंध 89 से है। उसी तर्क के अनुसार, 20 का संबंध निम्नलिखित में से किससे है?
(नोट: संख्याओं को उनके घटक अंकों में तोड़े बिना, पूर्ण संख्याओं पर संक्रियाएं की जानी चाहिए। उदाहरण के लिए 13 – 13 पर संक्रियाएं जैसे कि 13 को जोड़ना/घटाना/गुणा करना आदि किया जा सकता है। 13 को 1 और 3 में तोड़ना और फिर 1 तथा 3 पर गणितीय संक्रियाएं करने की अनुमति नहीं है।)

(1) 194
(2) 149
(3) 131 ✔
(4) 113

Q.34 Identify the figure given in the options which when put in place of ? will logically complete the series.

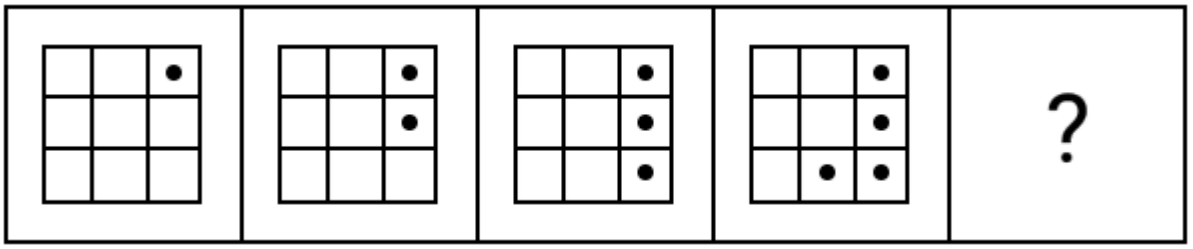

विकल्पों में दी गई आकृतियों में से उस आकृति की पहचान कीजिए, जिसे ? के स्थान पर रखने से श्रृंखला तार्किक रूप से पूर्ण हो जाएगी।

(1) 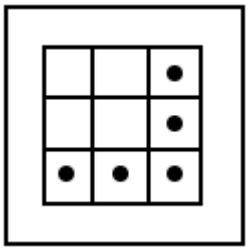
✔

(2) 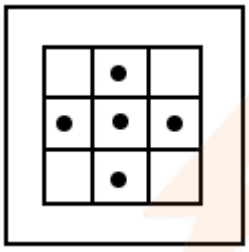

(3) 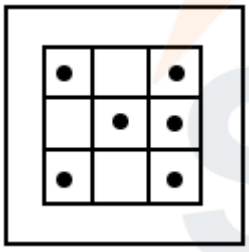

(4) 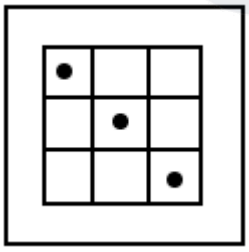

Quick Sarkari

Q.35 Two sets of numbers are given below. In each set of numbers, a certain mathematical operation on the first number results in the second number. Similarly, a certain mathematical operation on the second number results in the third number and so on. Which of the given options follows the same set of operations as in the given sets?
(NOTE: Operations should be performed on the whole numbers, without breaking down the numbers into their constituent digits. E.g. 13 – Operations on 13 such as adding/subtracting/multiplying etc. to 13 can be performed. Breaking down 13 into 1 and 3 and then performing mathematical operations on 1 and 3 is not allowed.)
15 - 45 - 105; 25 - 75 - 175

नीचे संख्याओं के दो समुच्चय दिए गए हैं। प्रत्येक संख्याओं के समुच्चय में, पहली संख्या पर एक निश्चित गणितीय संक्रिया करने पर दूसरी संख्या प्राप्त होती है। इसी प्रकार, दूसरी संख्या पर एक निश्चित गणितीय संक्रिया करने पर तीसरी संख्या प्राप्त होती है, इसी प्रकार आगे भी संख्याएँ प्राप्त होती हैं। दिए गए विकल्पों में से कौन-सा विकल्प, दिए गए समुच्चयों में प्रयुक्त संक्रियाओं के समान समुच्चय का अनुसरण करता है?
(नोट: संख्याओं को उनके घटक अंकों में तोड़े बिना संक्रियाएँ केवल पूर्ण संख्याओं पर की जानी चाहिए। उदाहरण के लिए, 13 लीजिए - 13 पर संक्रियाएँ, जैसे 13 में जोड़ना/घटाना/गुणा करना, की जा सकती हैं। 13 को 1 और 3 में तोड़ना और फिर 1 और 3 पर गणितीय संक्रियाएँ करने की अनुमति नहीं है।)
15 - 45 - 105; 25 - 75 - 175

(1) 27 - 81 - 162
(2) 21 - 63 - 126
(3) **18 - 54 - 126** ✔
(4) 24 - 48 - 168

Q.36 What should come in place of '?' in the given series?
5, 14, 32, 59, 95, ?

दी गई श्रृंखला में '?' के स्थान पर क्या आना चाहिए?
5, 14, 32, 59, 95, ?

(1) 145
(2) 150
(3) **140** ✔
(4) 155

Q.37 Following a certain logic, 34 is related to 234. Following the same logic, 10 is related to 90. Following the same logic, 44 is related to which of the following? (NOTE: Operations should be performed on the whole numbers, without breaking down the numbers into their constituent digits. E.g. 13 – Operations on 13 such as adding/subtracting/multiplying etc. to 13 can be performed. Breaking down 13 into 1 and 3 and then performing mathematical operations on 1 and 3 is not allowed.)

किसी निश्चित तर्क का अनुसरण करते हुए, 34 का संबंध 234 से है। समान तर्क का अनुसरण करते हुए, 10 का संबंध 90 से है। समान तर्क का अनुसरण करते हुए, 44 का संबंध निम्नलिखित में से किससे है? (नोट: संख्याओं को उनके घटक अंकों में तोड़े बिना, संक्रियाएं केवल पूर्ण संख्याओं पर की जानी चाहिए। उदाहरण के लिए, 13 लीजिए - 13 पर संक्रियाएं, जैसे 13 में जोड़ना/घटाना/गुणा करना, आदि की जा सकती हैं। 13 को 1 और 3 में तोड़ना तथा फिर 1 और 3 पर गणितीय संक्रियाएं करने की अनुमति नहीं है।)

(1) 298
(2) 238
(3) **294** ✔
(4) 284

QuickSarkari.com | WhatsApp Channel | Telegram: t.me/quick_sarkari

Q.38 What should come in place of ? in the given series?
85 85 86 90 99 ?
दी गई श्रृंखला में ? के स्थान पर क्या आना चाहिए?
85 85 86 90 99 ?

(1) 116
(2) 114
(3) 115 ✔
(4) 117

Q.39 Which of the following letter-number clusters will replace the question mark (?) to logically complete the given series?
NQU 15, PSW 20, RUY 25, TWA 30, ?
निम्नलिखित में से कौन-सा अक्षर-संख्या समूह दी गई श्रृंखला को तार्किक रूप से पूर्ण बनाने के लिए प्रश्न-चिह्न (?) को प्रतिस्थापित करेगा?
NQU 15, PSW 20, RUY 25, TWA 30, ?

(1) VZC 35
(2) VYD 35
(3) VYC 35 ✔
(4) VYC 30

Q.40 What should come in place of ? in the given series?
32 40 50 58 68 ?
दी गई श्रृंखला में ? के स्थान पर क्या आना चाहिए?
32 40 50 58 68 ?

(1) 75
(2) 77
(3) 78
(4) 76 ✔

General Awareness

Q.41 Which of the following religions was NOT prevalent during the Gupta Empire?
गुप्त साम्राज्य के दौरान निम्नलिखित में से कौन सा धर्म प्रचलित नहीं था?

(1) Buddhism / बौद्ध धर्म
(2) Jainism / जैन धर्म
(3) Hinduism / हिंदू धर्म
(4) Sikhism / सिख धर्म ✔

Q.42 Which of the following materials was commonly used for the construction of drains in Harappan cities?
हड़प्पा नगरों में नालियों के निर्माण के लिए आमतौर पर निम्नलिखित में से किस सामग्री का उपयोग किया जाता था?

(1) Lapis lazuli / लाजवर्द मणि
(2) Iron / लोहा
(3) Baked bricks / पकी ईंटें ✔
(4) Cotton / कपास

Q.43 Which of the following nations assumed the G20 presidency for the period from December 2024 to November 2025?

निम्नलिखित में से किस राष्ट्र ने दिसंबर 2024 से नवंबर 2025 की अवधि के लिए G20 की अध्यक्षता ग्रहण की?

(1) South Africa / दक्षिण अफ्रीका ✔

(2) Saudi Arabia / सऊदी अरब

(3) Argentina / अर्जेंटीना

(4) Japan / जापान

Q.44 When did the government launch the "Bharat Ranbhoomi Darshan" app and website to enable citizens to visit major battlefields of the 1962, 1971 and 1999 wars as well as significant conflict zones like Siachen Base Camp and Galwan Valley?

1962,1971 और 1999 के युद्धों के प्रमुख युद्धक्षेत्रों के साथ-साथ सियाचिन बेस कैंप और गलवान घाटी जैसे महत्वपूर्ण संघर्ष क्षेत्रों में नागरिकों को जाने की सुविधा देने के लिए सरकार ने "भारत रणभूमि दर्शन" ऐप और वेबसाइट कब लॉन्च किया था?

(1) January 2022 / जनवरी 2022

(2) January 2025 / जनवरी 2025 ✔

(3) January 2023 / जनवरी 2023

(4) January 2024 / जनवरी 2024

Q.45 In the Union Budget 2025, what was the revised income limit under the new tax regime below which individuals are exempt from paying income tax?

केंद्रीय बजट 2025 में, नई कर व्यवस्था के अंतर्गत वह संशोधित आय सीमा कितनी थी, जिसके नीचे व्यक्तियों को आयकर भुगतान से छूट प्राप्त है?

(1) ₹12 lakh / ₹12 लाख ✔

(2) ₹7 lakh / ₹7 लाख

(3) ₹10 lakh / ₹10 लाख

(4) ₹15 lakh / ₹15 लाख

Q.46 Where was the grand Durbar held to announce the transfer of power from the East India Company to the British Crown?

ईस्ट इंडिया कंपनी से ब्रिटिश राजशाही को सत्ता हस्तांतरण की घोषणा करने के लिए भव्य दरबार कहाँ आयोजित किया गया था?

(1) Kolkata / कोलकाता

(2) Allahabad / इलाहाबाद ✔

(3) Mumbai / मुंबई

(4) Delhi / दिल्ली

Q.47 Which of the following is NOT a characteristic feature of the Khajuraho temples?

निम्नलिखित में से कौन-सी , खजुराहो मंदिरों की एक अभिलाक्षणिक विशेषता नहीं है?

(1) Huge rectangular stepped tank in front of the temple / मंदिर के सामने विशाल आयताकार सोपानी तालाब

(2) Corinthian pillars supporting a stupa / स्तूप को आलंब प्रदान करने वाले कोरिंथियन स्तंभ ✔

(3) Extensive erotic sculptures / व्यापक कामुक मूर्तियां

(4) Balcony-like windows with sloping eaves / ढलवां झाँप वाली बालकनीनुमा खिड़कियाँ

Q.48 Who led the final "mopping up" operations of the Indian Rebellion in early 1858?
1858 की शुरुआत में भारतीय विद्रोह के अंतिम "मोपिंग अप" अभियानों का नेतृत्व किसने किया था?

(1) James Outram / जेम्स ऑटरम (James Outram)
(2) **Hugh Rose / ह्यूग रोज़ (Hugh Rose) ✔**
(3) Colin Campbell / कॉलिन कैंपबेल (Colin Campbell)
(4) Lord Canning / लॉर्ड कैनिंग (Lord Canning)

Q.49 In June 2025, the Chief Minister of which state announced a plan to use the Immigrants Act, 1950?
जून 2025 में, किस राज्य के मुख्यमंत्री ने आप्रवासी अधिनियम, 1950 का उपयोग करने की योजना की घोषणा की?

(1) Maharashtra / महाराष्ट्र
(2) Kerala / केरल
(3) **Assam / असम ✔**
(4) Uttar Pradesh / उत्तर प्रदेश

Q.50 In which of the following regions is the 'Painted Grey Ware' culture NOT found?
निम्नलिखित में से किस क्षेत्र में 'चित्रित धूसर मृदभांड' (Painted Grey Ware) संस्कृति नहीं पाई जाती है?

(1) Punjab / पंजाब
(2) Rajasthan / राजस्थान
(3) **Maharashtra / महाराष्ट्र ✔**
(4) Haryana / हरियाणा

Q.51 Which theme, launched in 2025, was promoted under PM-YUVA 3.0 - Prime Minister's Scheme for Mentoring Young Authors?
2025 में लॉन्च की गई किस थीम को PM-YUVA 3.0 -प्राइम मिनिस्टर स्कीम फॉर मेंटरिंग यंग ऑथर्स (Prime Minister's Scheme for Mentoring Young Authors) के अंतर्गत बढ़ावा दिया गया?

(1) Digital Governance and Artificial Intelligence / डिजिटल गवर्नेंस एंड आर्टिफिशियल इंटेलिजेंस (Digital Governance and Artificial Intelligence)
(2) Climate Change Innovations / क्लाइमेट चेंज इनोवेशन (Climate Change Innovations)
(3) Indian Foreign Policy / इंडियन फॉरेन पॉलिसी (Indian Foreign Policy)
(4) **Makers of Modern India (1950–2025) / मेकर्स ऑफ मॉडर्न इंडिया (1950–2025) (Makers of Modern India (1950–2025)) ✔**

Q.52 Paying tribute to the famous playback singer Mohammed Rafi on his 100th birth anniversary, a commemorative coin of which denomination was announced by the Government of India in February 2025?
प्रसिद्ध पार्श्व गायक मोहम्मद रफी को उनकी 100वीं जयंती पर श्रद्धांजलि देते हुए, फरवरी 2025 में भारत सरकार द्वारा किस मूल्यवर्ग के स्मारक सिक्के की घोषणा की गई थी?

(1) ₹50 / 50 रुपये
(2) **₹100 / 100 रुपये ✔**
(3) ₹20 / 20 रुपये
(4) ₹10 / 10 रुपये

Q.53 As of March 2025, how many Tele MANAS cells have been set up across various states and union territories to ensure local access to mental health services?

मार्च 2025 तक की स्थिति के अनुसार, मानसिक स्वास्थ्य सेवाओं तक स्थानीय पहुँच सुनिश्चित करने के लिए विभिन्न राज्यों और केंद्र-शासित प्रदेशों में कितने टेली मानस सेल (tele Manas cells) स्थापित किए गए हैं?

(1) 47

(2) 49

(3) **53** ✔

(4) 43

Q.54 What is the main theme of the April 2025 Fiscal Monitor report?

अप्रैल 2025 की फिस्कल मॉनिटर (Fiscal Monitor) रिपोर्ट की मुख्य थीम क्या है?

(1) Technological innovation in finance / टेक्नोलॉजिकल इनोवेशन इन फाइनेंस (Technological innovation in finance)

(2) Climate policy and taxation / क्लाइमेट पॉलिसी एंड टैक्सेशन (Climate policy and taxation)

(3) Global trade recovery / ग्लोबल ट्रेड रिकवरी (Global trade recovery)

(4) **Fiscal Policy under Uncertainty / फिस्कल पॉलिसी अंडर अनसर्टेनिटी (Fiscal Policy under Uncertainty)** ✔

Q.55 The Indian National Congress was founded when 72 delegates from across the country gathered in Bombay in December.

भारतीय राष्ट्रीय कांग्रेस की स्थापना तब हुई, जब दिसंबर में देशभर से 72 प्रतिनिधि बॉम्बे में एकत्रित हुए थे।

(1) 1875

(2) **1885** ✔

(3) 1870

(4) 1880

Q.56 In 2024, India joined which UAE-led initiative at COP29?

2024 में भारत, COP29 में UAE के नेतृत्व वाली किस पहल में शामिल हुआ?

(1) Carbon-Free Future Network / कार्बन-मुक्त भविष्य नेटवर्क (Carbon-Free Future Network)

(2) Global Solar Energy Pact / वैश्विक सौर ऊर्जा समझौता (Global Solar Energy Pact)

(3) **Global Energy Efficiency Alliance / वैश्विक ऊर्जा दक्षता गठबंधन (Global Energy Efficiency Alliance)** ✔

(4) Clean Air Initiative / स्वच्छ वायु पहल (Clean Air Initiative)

Q.57 In the traditional Odisha 'Pattachitra' art style, which surface is commonly used for detailed iconographic painting?

पारंपरिक ओडिशा 'पट्टचित्र' कला शैली में, विस्तृत आइकोनोग्राफी चित्रकला के लिए सामान्यत: किस पृष्ठ का उपयोग किया जाता है?

(1) Freshly peeled strips of bamboo tied with string / डोरी से बांधी गई बांस की ताजी छीली हुई पट्टियां

(2) **Hand-woven cotton cloth coated with chalk and gum / चॉक तथा गोंद से लेपित हाथ से बुना हुआ सूती कपड़ा** ✔

(3) Untreated palm bark pressed into panels / पैनलों में दबाई गयी अनोपचारित ताड़ की छाल

(4) Silk paper layered on terracotta tiles / टेराकोटा टाइल्स पर लेयर किया गया रेशमी कागज

Q.58 Which AI-powered credit card expert was launched by Che Q in January 2025?

जनवरी 2025 में Che Q द्वारा कौन-सा AI-संचालित क्रेडिट कार्ड एक्सपर्ट लॉन्च किया गया?

(1) QPro / क्यूप्रो (QPro)

(2) CheQuick / चे क्विक (CheQuick)

(3) **Wisor / वाइजर (Wisor)** ✔

(4) Card Genie / कार्ड जिनी (Card Genie)

Q.59 'Garba' and 'Dandiya Raas' are traditional dance forms of which state of India?

'गरबा' और 'डांडिया रास' भारत के किस राज्य के पारंपरिक नृत्य रूप हैं?

(1) Maharashtra / महाराष्ट्र

(2) Rajasthan / राजस्थान

(3) Punjab / पंजाब

(4) Gujarat / गुजरात ✔

Q.60 In May 2026, Prime Minister Narendra Modi was honoured with the 'Royal Order of the Polar Star, Degree Commander Grand Cross'. This is the highest honour conferred on foreign heads of government by which country?

मई 2026 में, प्रधानमंत्री नरेंद्र मोदी को 'रॉयल ऑर्डर ऑफ़ द पोलर स्टार, डिग्री कमांडर ग्रैंड क्रॉस (Royal Order of the Polar Star, Degree Commander Grand Cross)' द्वारा सम्मानित किया गया। यह किस देश द्वारा विदेशी शासनाध्यक्षों को दिया जाने वाला सर्वोच्च सम्मान है?

(1) Norway / नॉर्वे

(2) Denmark / डेनमार्क

(3) Sweden / स्वीडन ✔

(4) Finland / फिनलैंड

Q.61 When sound travels through air, sound waves are classified as which of the following types of waves?

जब ध्वनि हवा में यात्रा करती है, तो ध्वनि तरंगों को निम्नलिखित में से किस प्रकार की तरंग के रूप में वर्गीकृत किया जाता है?

(1) Radio waves / रेडियो तरंगों

(2) Electromagnetic waves / विद्युत चुम्बकीय तरंगों

(3) Longitudinal waves / अनुदैर्ध्य तरंगों ✔

(4) Transverse waves / अनुप्रस्थ तरंगों

Q.62 Which of the following best describes a solenoid?

निम्नलिखित में से कौन-सा, परिनालिका (solenoid) का सर्वोत्तम वर्णन करता है?

(1) A coil of wire / तार की कुंडली ✔

(2) A loop of iron / लोहे का पाश

(3) A capacitor / संधारित्र

(4) A resistor / प्रतिरोधक

Q.63 According to the data of the Ministry of New and Renewable Energy, which Indian state added the highest new wind power capacity in India in 2024?

नवीन एवं नवीकरणीय ऊर्जा मंत्रालय के आंकड़ों के अनुसार, किस भारतीय राज्य ने 2024 में भारत में सबसे अधिक नई पवन ऊर्जा क्षमता जोड़ी है?

(1) Maharashtra / महाराष्ट्र

(2) Rajasthan / राजस्थान

(3) Gujarat / गुजरात ✔

(4) Tamil Nadu / तमिलनाडु

Q.64 Which of the following chapters of Part V of the Indian Constitution describes the role of the Union Executive?

भारतीय संविधान के भाग V के निम्नलिखित में से किस अध्याय में संघ की कार्यपालिका की भूमिका का वर्णन किया गया है?

(1) Chapter III / अध्याय III

(2) Chapter II / अध्याय II

(3) Chapter I / अध्याय I ✔

(4) Chapter IV / अध्याय IV

Q.65 Which of the following is a major drawback of most non-conventional energy sources like solar and wind?

निम्नलिखित में से कौन-सा, सौर और पवन जैसे अधिकांश गैर-पारंपरिक ऊर्जा स्रोतों का एक प्रमुख दोष है?

(1) High cost of fuel / ईंधन की उच्च लागत

(2) Heavy emissions during operation / प्रचालन के दौरान भारी उत्सर्जन

(3) High pollution / उच्च प्रदूषण

(4) **Dependence on weather / मौसम पर निर्भरता ✔**

Q.66 The Pir Panjal range is a part of which of the following Himalayan divisions?

पीर पंजाल पर्वतमाला निम्नलिखित में से किस हिमालयी प्रभाग का हिस्सा है?

(1) Greater Himalayas / वृहत हिमालय (Greater Himalayas)

(2) Eastern Hills / पूर्वी पहाड़ियां (Eastern Hills)

(3) **Lesser Himalayas / लघु हिमालय (Lesser Himalayas) ✔**

(4) Outer Himalayas / बाह्य हिमालय (Outer Himalayas)

Q.67 The Directive Principles described in the Indian Constitution resemble the 'Instrument of Instructions' mentioned in the _____.

भारतीय संविधान में वर्णित निर्देशक सिद्धांत, _____ में उल्लिखित 'अनुदेश प्रपत्र (Instrument of Instruction)' से मिलते-जुलते हैं।

(1) **Government of India Act, 1935 / भारत सरकार अधिनियम, 1935 ✔**

(2) Government of India Act, 1919 / भारत सरकार अधिनियम, 1919

(3) Government of India Act, 1918 / भारत सरकार अधिनियम, 1918

(4) Government of India Act, 1858 / भारत सरकार अधिनियम, 1858

Q.68 Which of the following areas falls under the decision-making jurisdiction of the Union Cabinet?

निम्नलिखित में से कौन-सा क्षेत्र, केंद्रीय मंत्रिमंडल के निर्णय लेने के अधिकार क्षेत्र के अंतर्गत आता है?

(1) Local traffic management / स्थानीय यातायात प्रबंधन

(2) Regulation of street vendors / रेहड़ी-पटरी विक्रेताओं का विनियमन

(3) **Foreign policy and defence / विदेश नीति और रक्षा ✔**

(4) Enrolment of students in government schools / सरकारी विद्यालयों में विद्यार्थियों का नामांकन

Q.69 Which of the following options best describes the structural composition of the Indian economy at the time of Independence?

स्वतंत्रता के समय भारतीय अर्थव्यवस्था के संरचनात्मक संघटन (structural composition) का सर्वोत्तम वर्णन निम्नलिखित में से कौन-सा विकल्प करता है?

(1) Export-led output / निर्यात-आधारित आउटपुट (Export-led output)

(2) **Agriculture-dominated output / कृषि-प्रधान आउटपुट (Agriculture-dominated output) ✔**

(3) Industry-dominated output / उद्योग-प्रधान आउटपुट (Industry-dominated output)

(4) Services-led output / सेवा-आधारित आउटपुट (Services-led output)

Q.70 Which of the following options best explains the Industrial Policy Resolution of 1956?

निम्नलिखित में से कौन-सा विकल्प, 1956 के उद्योग नीति संकल्प को सर्वोत्तम रूप से स्पष्ट करता है?

(1) Privatisation of agriculture / कृषि निजीकरण

(2) Dominance of the private sector / निजी क्षेत्र का प्रभुत्व

(3) Preference for foreign capital / विदेशी पूंजी को प्राथमिकता

(4) **Expansion of the public sector / सार्वजनिक क्षेत्र का विस्तार ✔**

Q.71 After the initial approval by both Houses of Parliament, a National Emergency remains valid for a maximum of _____ without the need for fresh approval of Parliament.

संसद के दोनों सदनों द्वारा प्रारंभिक अनुमोदन के बाद, संसद के नए अनुमोदन की आवश्यकता के बिना राष्ट्रीय आपातकाल की अवधि अधिकतम _____ तक वैध रहती है।

(1) 6 months / 6 माह ✔

(2) 1 month / 1 माह

(3) 1 year / 1 वर्ष

(4) 3 months / 3 माह

Q.72 Where do the Bhagirathi and Alaknanda rivers meet to form the river Ganga?

गंगा नदी का निर्माण करने हेतु भागीरथी और अलकनंदा नदियों का संगम कहाँ होता हैं?

(1) Devprayag / देवप्रयाग ✔

(2) Haridwar / हरिद्वार

(3) Rudraprayag / रुद्र प्रयाग

(4) Gaumukh / गौमुख

Q.73 Which of the following statements is correct regarding the Fundamental Duties described in the Constitution of India?

निम्नलिखित में से कौन-सा कथन, भारत के संविधान में वर्णित मौलिक कर्तव्यों के संबंध में सही है?

(1) The original list of Fundamental Duties included 11 specific duties. / मौलिक कर्तव्यों की मूल सूची में 11 विशिष्ट कर्तव्य शामिल थे।

(2) Fundamental Duties were included in the Constitution at the time of its adoption in 1950 itself. / मौलिक कर्तव्यों को 1950 में संविधान को अपनाए जाने के समय ही उसमें शामिल किया गया था।

(3) Fundamental Duties are listed under Part IV-A of Article 51-A of the Constitution. / संविधान के अनुच्छेद 51-A के भाग IV-A के अंतर्गत मौलिक कर्तव्यों को सूचीबद्ध किया गया है। ✔

(4) Fundamental Duties are justiciable and enforceable by the courts. / मौलिक कर्तव्य वादयोग्य होते हैं और न्यायालयों द्वारा प्रवर्तनीय होते हैं।

Q.74 Which of the following landform features is absent in the west-flowing rivers of the Peninsular Plateau but is typical of the east-flowing rivers?

निम्नलिखित में से कौन-सी भू-आकृतिगत संरचना, प्रायद्वीपीय पठार की पश्चिम की ओर प्रवाहित होने वाली नदियों में अनुपस्थित है, लेकिन पूर्व की ओर प्रवाहित होने वाली नदियों में विशिष्ट है?

(1) Waterfalls / जलप्रपात

(2) Deltas / डेल्टा ✔

(3) Rapids / क्षिप्रिकाएँ

(4) Canyons / महाखड्ड

Q.75 Which treaty on climate change did India officially ratify on 2 October 2016 at the United Nations Headquarters in New York?

भारत ने 2 अक्टूबर 2016 को न्यूयॉर्क स्थित संयुक्त राष्ट्र मुख्यालय में जलवायु परिवर्तन पर किस संधि का आधिकारिक रूप से अनुसमर्थन किया?

(1) Kigali Agreement / किगाली समझौता

(2) Minamata Agreement / मिनामाता समझौता

(3) Paris Agreement / पेरिस समझौता ✔

(4) Nagoya Agreement / नागोया समझौता

Q.76 Which of the following Articles of the Indian Constitution mentions the power of Parliament to amend the Constitution and its procedure?

भारतीय संविधान के निम्नलिखित में से किस अनुच्छेद में संसद की संविधान में संशोधन करने की शक्ति और उसकी प्रक्रिया का उल्लेख है?

(1) Article 297 / अनुच्छेद 297

(2) Article 293 / अनुच्छेद 293

(3) Article 374 / अनुच्छेद 374

(4) **Article 368 / अनुच्छेद 368** ✔

Q.77 Which of the following factors is a major structural cause of persistent unemployment in India?

निम्नलिखित में से कौन-सा कारक, भारत में सतत बेरोजगारी का एक प्रमुख संरचनात्मक कारण है?

(1) Seasonal migration / मौसमी प्रवसन (Seasonal migration)

(2) Fluctuating oil prices / तेल की कीमतों में उतार-चढ़ाव (Fluctuating oil prices)

(3) Poor monsoon / अल्प मानसून (Poor monsoon)

(4) **Skill-job mismatch / कौशल और नौकरी का बेमेल होना (Skill-job mismatch)** ✔

Q.78 In which year were the provisions related to Panchayats and Municipalities included in the Indian Constitution?

भारतीय संविधान में पंचायतों और नगर पालिकाओं से संबंधित प्रावधान किस वर्ष शामिल किए गए थे?

(1) 1994

(2) 1993

(3) **1992** ✔

(4) 1991

Q.79 Which of the following options best characterises liberalisation in India's industrial sector after 1991?

1991 के बाद भारत के औद्योगिक क्षेत्र में उदारीकरण को निम्नलिखित में से कौन-सा विकल्प सर्वोत्तम रूप से निरूपित करता है?

(1) Centralised allocation / केंद्रीकृत आवंटन

(2) Expansion of quotas / कोटे का विस्तार

(3) Increase in inspections / निरीक्षणों में वृद्धि

(4) **Removal of entry barriers / प्रवेश बाधाओं को हटाना** ✔

Q.80 Which among the following chemical elements is present in every protein molecule?

निम्नलिखित में से कौन-सा रासायनिक तत्व प्रत्येक प्रोटीन अणु में उपस्थित होता है?

(1) Phosphorus / फॉस्फोरस

(2) **Nitrogen / नाइट्रोजन** ✔

(3) Calcium / कैल्शियम

(4) Sulphur / सल्फर

Arithmetical and Numerical Ability

Q.81 Three numbers, 1111, 1293, and 1033, are divided by the greatest number and leave the same remainder in each case. The square of the remainder value will be:

तीन संख्याओं 1111, 1293 और 1033 को सबसे बड़ी संख्या से विभाजित करने पर प्रत्येक स्थिति में समान शेषफल प्राप्त होता है। शेषफल का वर्ग होगा:

(1) 49

(2) 16

(3) 36

(4) 361 ✔

Q.82 Mahesh has two grandsons, David and Rodney. David, aged 15 years, gets some amount from Mahesh, and Rodney, aged 16 years, gets the remaining amount. But David and Rodney will get the amount only when they become 22 years old. Till then, the amount will remain deposited in a bank at 10% per annum compound interest, where the interest is compounded annually. When both become 22 years old, they get equal amounts. If Mahesh had a total of ₹23100, then what amount (in ₹) did Mahesh initially give to Rodney?

महेश के दो पोते डेविड और रॉडनी हैं। 15 वर्षीय डेविड को महेश से कुछ धनराशि मिलती है, और 16 वर्षीय रॉडनी को शेष धनराशि मिलती है। लेकिन डेविड और रॉडनी को धनराशि तभी मिलेगी जब वे 22 वर्ष के हो जाएंगे। तब तक, यह धनराशि एक बैंक में 10% वार्षिक चक्रवृद्धि ब्याज दर पर जमा रहेगी जहां ब्याज वार्षिक रूप से संयोजित होता है। जब दोनों 22 वर्ष के हो जाते हैं, तो उन्हें बराबर धनराशि मिलती है। यदि महेश के पास कुल ₹23100 थे, तो शुरुआत में महेश ने रॉडनी को कितनी धनराशि (₹ में) दी थी?

(1) 11000

(2) 12450

(3) 12100 ✔

(4) 10750

Q.83 The value of $(100)^{1/2} \times (0.001)^{1/3} - (0.0016)^{1/4} \times 3^0 + (5/3)^{-1}$ is equal to:

$(100)^{1/2} \times (0.001)^{1/3} - (0.0016)^{1/4} \times 3^0 + (5/3)^{-1}$ का मान किसके बराबर है?

(1) 4.1

(2) 1.4 ✔

(3) 0.14

(4) 1.1

Q.84 How many prime numbers are there between 1 and 60?

1 और 60 के बीच कितनी अभाज्य संख्याएं हैं?

(1) 19

(2) 17 ✔

(3) 16

(4) 13

Q.85 Simplify $\sqrt[6]{4096} + \sqrt[4]{83521} + \sqrt[3]{15625} + \sqrt{1369}$

$\sqrt[6]{4096} + \sqrt[4]{83521} + \sqrt[3]{15625} + \sqrt{1369}$ को सरल कीजिए।

(1) 83 ✔

(2) 143

(3) 85

(4) 47

Q.86 Amit's income in 2019 was ₹24300. His income increases by 30% every year. What was his income (in ₹) in 2021?

2019 में अमित की आय ₹24300 थी। उसकी आय में प्रत्येक वर्ष 30% की बढ़ोतरी होती है। 2021 में उसकी आय (₹ में) कितनी थी?

(1) 38880

(2) 29300

(3) **41067** ✔

(4) 31590

Q.87 In the population of a town, the ratio of the number of males to females is 7 : 5. If 65% of the males and 80% of the females are literate, then find the percentage of literate persons in the town.

एक कस्बे की जनसंख्या में पुरुषों और महिलाओं की संख्या का अनुपात 7 : 5 है। यदि 65% पुरुष और 80% महिलाएं साक्षर हैं, तो कस्बे में साक्षर व्यक्तियों का प्रतिशत ज्ञात कीजिए।

(1) **71.25%** ✔

(2) 72.25%

(3) 70.25%

(4) 73.25%

Q.88 A sum of ₹6,300 is invested for 2 years at 20% per annum compound interest, compounded annually. Find the amount.

₹6,300 की धनराशि को वार्षिक रूप से संयोजित होने वाली 20% वार्षिक चक्रवृद्धि ब्याज दर पर 2 वर्षों के लिए निवेश किया जाता है, मिश्रधन ज्ञात कीजिए।

(1) **₹9,072** ✔

(2) ₹9,172

(3) ₹9,675

(4) ₹9,769

Q.89 In what ratio should a grocer mix two varieties of wheat costing ₹55 per kg and ₹95 per kg, so that he gets a profit of 20% on selling the mixture at ₹96 per kg?

एक पंसारी को ₹55 प्रति kg और ₹95 प्रति kg वाली गेहूं की दो किस्मों को किस अनुपात में मिलाना चाहिए, ताकि मिश्रण को ₹96 प्रति kg में बेचने पर उसे 20% का लाभ प्राप्त हो?

(1) 4:1

(2) 13:10

(3) **3:5** ✔

(4) 5:6

Q.90 Two quintal bags of rice with cost prices of ₹60 and ₹54 per kg, respectively, are mixed. If 120 kgs of the mixed rice is sold at an average rate of ₹62 and 80 kgs at an average rate of ₹57.50, then find the profit made on both the bags.

क्रमशः ₹60 और ₹54 प्रति kg क्रय मूल्य वाले चावल के दो क्विंटल बैग को मिश्रित किया जाता है। यदि मिश्रित चावल के 120 kgs को ₹62 की औसत दर पर तथा 80 kgs को ₹57.50 की औसत दर पर बेचा जाता हैं, तो दोनों बैगों पर होने वाला लाभ ज्ञात कीजिए।

(1) ₹580

(2) ₹750

(3) ₹500

(4) **₹640** ✔

Q.91 Find the value of (12 ÷ 6) × 5.

(12 ÷ 6) × 5 का मान ज्ञात कीजिए।

(1) 10 ✔

(2) 12

(3) 14

(4) 11

Q.92 The following table shows the marks obtained by students in an examination.

Marks obtained | Number of students

150-199 | 45

200-249 | 30

250-299 | 60

300-349 | 35

350-399 | 40

400-449 | 25

450-500 | 20 By what percentage is the number of students who obtained less than 250 marks more than the number of students who obtained 400 or more marks? (Round off your answer to one decimal place)

निम्नलिखित तालिका में किसी परीक्षा में विद्यार्थियों के प्राप्तांकों को दर्शाया गया है।

प्राप्तांक | विद्यार्थियों की संख्या

150-199 | 45

200-249 | 30

250-299 | 60

300-349 | 35

350-399 | 40

400-449 | 25

450-500 | 20 250 से कम प्राप्तांक वाले विद्यार्थियों की संख्या, 400 या उससे अधिक प्राप्तांक वाले विद्यार्थियों की संख्या से कितने प्रतिशत अधिक है? (अपने उत्तर को दशमलव के एक स्थान तक पूर्णांकित कीजिए)

(1) 67.7%

(2) 65.7%

(3) 66.7% ✔

(4) 68.9%

Q.93 When the selling price of a guitar is ₹18,000, the shopkeeper incurs a loss of 10%. What should be the selling price (in ₹) of the guitar to earn a profit of 20%?

जब एक गिटार का विक्रय मूल्य ₹18,000 होता है, तो दुकानदार को 10% की हानि होती है। 20% का लाभ अर्जित करने के लिए गिटार का विक्रय मूल्य (₹ में) कितना होना चाहिए?

(1) 24,000 ✔

(2) 23,000

(3) 23,500

(4) 24,500

Q.94 A bicycle was purchased for ₹1,500. It was sold at a profit of 10%. The new buyer sold it again at a loss of 20%. Find the final selling price of the bicycle.

एक साइकिल ₹1,500 में खरीदी गई। इसे 10% के लाभ पर बेचा गया। नए खरीदार ने इसे पुनः 20% की हानि पर बेच दिया। साइकिल का अंतिम विक्रय मूल्य ज्ञात कीजिए।

(1) ₹1,300

(2) **₹1,320** ✔

(3) ₹1,350

(4) ₹1,380

Q.95 At what rate of simple interest per annum will a sum of money double itself in 9 years? (Rounded off to two decimal places)

साधारण ब्याज की किस वार्षिक दर से कोई धनराशि 9 वर्षों में स्वयं की दोगुनी हो जाएगी? (दशमलव के दो स्थानों तक पूर्णांकित)

(1) 13.11%

(2) 22.22%

(3) **11.11%** ✔

(4) 9.11%

Q.96 How many prime numbers are there between 21 and 78?

21 और 78 के बीच कितनी अभाज्य संख्याएं हैं?

(1) 15

(2) 14

(3) **13** ✔

(4) 11

Q.97 Find the value of $28^{-21} \times 19^{-21} \times 8^{-21}$.

$28^{-21} \times 19^{-21} \times 8^{-21}$ का मान ज्ञात कीजिए।

(1) $1/4214^{21}$

(2) $1/4274^{21}$

(3) **$1/4256^{21}$** ✔

(4) $1/4223^{21}$

Q.98 The pie chart given below shows the degree-wise distribution of the expenditure incurred by a company on various sports for its employees.

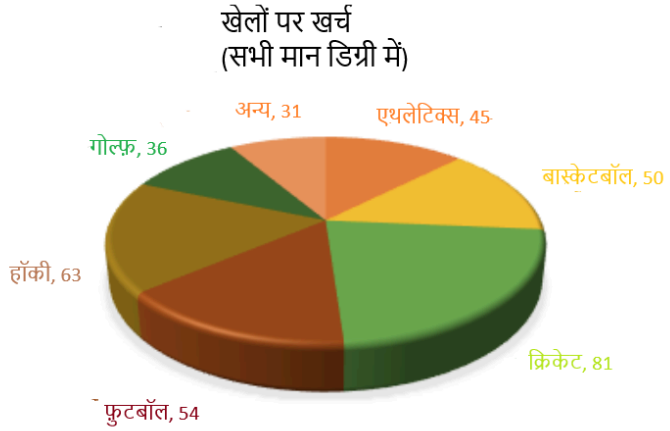

What percentage more or less is spent on Athletics as compared to Basketball?

नीचे दिए गए पाई चार्ट में किसी कंपनी द्वारा अपने कर्मचारियों हेतु विभिन्न खेलों पर किए गए खर्च का डिग्री-वार वितरण दर्शाया गया है। बास्केटबॉल की तुलना में एथलेटिक्स पर कितने प्रतिशत अधिक या कम खर्च किया जाता है?

(1) 5% more / 5% अधिक
(2) 10% more / 10% अधिक
(3) 5% less / 5% कम
(4) **10% less / 10% कम ✔**

Q.99 A class of 65 students took a Physics test. The average score of 32 students was 78. The average score of the remaining students was 63. What is the average score of the whole class (rounded off to the nearest integer)?

65 विद्यार्थियों की एक कक्षा ने भौतिकी की परीक्षा दी। 32 विद्यार्थियों का औसत अंक 78 था। शेष विद्यार्थियों का औसत अंक 63 था। संपूर्ण कक्षा का औसत अंक (निकटतम पूर्णांक तक पूर्णांकित) कितना है?

(1) 73
(2) **70 ✔**
(3) 78
(4) 63

Q.100 Find the least common multiple (LCM) of 7, 15, 21 and 88.

7, 15, 21 और 88 का लघुत्तम समापवर्त्य (LCM) ज्ञात कीजिए।

(1) 9230
(2) 9220
(3) 9210
(4) **9240 ✔**

Q.101 What is the total surface area of a cone of base radius 12 cm and height 16 cm?

12 cm आधार त्रिज्या और 16 cm ऊँचाई वाले एक शंकु का संपूर्ण पृष्ठीय क्षेत्रफल कितना है?

(1) **384π cm^2 ✔**
(2) 374π cm^2
(3) 364π cm^2
(4) 354π cm^2

Q.102 Successive discounts of 7% and 13% given on an invoice are equal to which single discount?

किसी इनवॉइस पर दी गई 7% और 13% की क्रमिक छूट, किस एकल छूट के बराबर है?

(1) 17.09%

(2) **19.09%** ✔

(3) 18.09%

(4) 20.09%

Q.103 Sandeep and Sanju invest in a business in the ratio 2 : 1. If 16% of the total profit is given as charity and Sandeep's share is ₹3717, then find the total profit (in ₹).

संदीप और संजू एक व्यवसाय में 2 : 1 के अनुपात में निवेश करते हैं। यदि कुल लाभ का 16% दान दे दिया जाता है और संदीप का हिस्सा ₹3717 है, तो कुल लाभ (₹ में) ज्ञात कीजिए।

(1) 6375.50

(2) **6637.50** ✔

(3) 6317.50

(4) 6312.50

Q.104 An auto-rickshaw travels at a constant speed of 14 metres per second. What distance (in kilometres) will it cover in 2 hours 30 minutes?

एक ऑटो-रिक्शा 14 मीटर प्रति सेकंड की नियत चाल से यात्रा करता है। यह 2 घंटे 30 मिनट में कितनी दूरी (किलोमीटर में) तय करेगा?

(1) 123

(2) 127

(3) **126** ✔

(4) 124

Q.105 Find the number of bricks, each measuring 46 cm × 60 cm × 16 cm, required to construct a wall of length 46 m, height 18 m and thickness 0.6 m, while 60% of the total volume of the wall is occupied by a mixture of sand and cement.

46 m लंबाई, 18 m ऊंचाई और 0.6 m मोटाई वाली दीवार का निर्माण करने के लिए आवश्यक ईंटों की संख्या ज्ञात कीजिए, जिनमें से प्रत्येक ईंट की माप 46 cm × 60 cm × 16 cm है, जबकि दीवार के कुल आयतन का 60% भाग रेत और सीमेंट के मिश्रण द्वारा घेरा गया है।

(1) 4300

(2) 4700

(3) **4500** ✔

(4) 4400

Q.106 In a camp, food provisions are available for 50 persons for 12 days. If the number of persons increases to 120, then for how many days will the same food provisions last?

एक शिविर में 50 व्यक्तियों के लिए 12 दिनों की खाद्य सामग्री उपलब्ध है। यदि व्यक्तियों की संख्या बढ़कर 120 हो जाती है, तो वही खाद्य सामग्री कितने दिनों तक चलेगी?

(1) **5** ✔

(2) 3

(3) 4

(4) 8

QuickSarkari.com | WhatsApp Channel | Telegram: t.me/quick_sarkari

Q.107 The diameter of a sphere is 12 cm more than the diameter of a smaller sphere. The surface area of the larger sphere is 1056 cm^2 more than the surface area of the smaller sphere. Find the diameter (in cm) of the larger sphere.
(Use π = 22/7)

एक गोले का व्यास, एक छोटे गोले के व्यास से 12 cm अधिक है। बड़े गोले का पृष्ठीय क्षेत्रफल, छोटे गोले के पृष्ठीय क्षेत्रफल से 1056 cm^2 अधिक है। बड़े गोले का व्यास (cm में) ज्ञात कीजिए?
(π = 22/7 का उपयोग कीजिए)

(1) 16
(2) 22
(3) 18
(4) 20 ✔

Q.108 The marked price of a shirt is ₹200 and there is a discount of 24% on it. What percentage of additional discount should be given to the customer to make the net price ₹114?

एक शर्ट का अंकित मूल्य ₹200 है और उस पर 24% की छूट है। नेट मूल्य को ₹114 करने के लिए ग्राहक को कितने प्रतिशत अतिरिक्त छूट दी जानी चाहिए?

(1) 25% ✔
(2) 23%
(3) 30%
(4) 27%

Q.109 Pipe A can fill a tank in 11 hours, pipe B can fill the same tank in 22 hours and pipe C can fill the same tank in 14 hours. If all three pipes are opened together, then how much time will it take to fill the same tank?

पाइप A किसी टैंक को 11 घंटे में भर सकता है, पाइप B उसी टैंक को 22 घंटे में भर सकता है और पाइप C उसी टैंक को 14 घंटे में भर सकता है। यदि तीनों पाइप एक साथ खोल दिए जाएं, तो उसी टैंक को भरने में कितना समय लगेगा?

(1) 4 1/2 hours / 4 1/2 घंटे
(2) 4 13/16 hours / 4 13/16 घंटे ✔
(3) 5 1/4 hours / 5 1/4 घंटे
(4) 5 3/8 hours / 5 3/8 घंटे

Q.110 What will be the total surface area (in m^2) of a cube with an edge of 259 m?

259 m कोर वाले घन का संपूर्ण पृष्ठीय क्षेत्रफल (m^2 में) कितना होगा?

(1) 402486 ✔
(2) 402522
(3) 402450
(4) 402444

Q.111 A shopkeeper marks the price of an article 80% above its cost price. What percentage of discount should be given on the marked price to earn a profit of 44%?

एक दुकानदार किसी वस्तु का अंकित मूल्य उसके क्रय मूल्य से 80% अधिक निर्धारित करता है। 44% का लाभ प्राप्त करने के लिए अंकित मूल्य पर कितने प्रतिशत की छूट दी जानी चाहिए?

(1) 17%
(2) 22%
(3) 20% ✔
(4) 18%

Q.112 A circle is inscribed in an equilateral triangle of side 24 cm such that it touches its sides. Find the area of the remaining part of the triangle.

24 cm भुजा वाले एक समबाहु त्रिभुज में एक वृत्त इस प्रकार अंतर्निहित (inscribed) किया गया है जो उसकी भुजाओं को स्पर्श करता है। त्रिभुज के शेष भाग का क्षेत्रफल ज्ञात कीजिए।

(1) $144\sqrt{3} - 46\pi$ cm^2

(2) $154\sqrt{3} - 46\pi$ cm^2

(3) $14\sqrt{3} - 48\pi$ cm^2

(4) **$144\sqrt{3} - 48\pi$ cm^2** ✔

Q.113 Two trains, X and Y, start simultaneously from station A to station B. Train X travels at a speed of 80 km/h. Train Y travels at a constant speed but stops once for 30 minutes midway, and its overall average speed including the stop is 90 km/h. If train X takes 1 hour more than train Y to reach station B, then find the average speed of train Y if it does not stop anywhere during the journey.

दो ट्रेनें, X और Y, स्टेशन A से स्टेशन B के लिए एक साथ चलना शुरू करती हैं। ट्रेन X, 80 km/h की चाल से यात्रा करती है। ट्रेन Y, एक नियत चाल से यात्रा करती है लेकिन रास्ते के मध्य में एक बार 30 मिनट के लिए रुकती है, और ठहराव (stop) सहित उसकी समग्र औसत चाल 90 km/h है। यदि ट्रेन X को स्टेशन B तक पहुँचने में ट्रेन Y की तुलना में 1 घंटा अधिक समय लगता है, तो ट्रेन Y की औसत चाल ज्ञात कीजिए यदि वह यात्रा में कहीं भी न रुके।

(1) 100 km/h

(2) 98 km/h

(3) 94 km/h

(4) **96 km/h** ✔

Q.114 The first and the second numbers are 19% and 22% more than the third number, respectively. Find the ratio of the first and the second numbers.

पहली और दूसरी संख्या, तीसरी संख्या से क्रमशः 19% और 22% अधिक हैं। पहली और दूसरी संख्या का अनुपात ज्ञात कीजिए।

(1) 19 : 22

(2) 100 : 119

(3) **119 : 122** ✔

(4) 219 : 222

Q.115 A sum of ₹8,870 is divided between Vikram, Komal and Rishi such that if their shares are decreased by ₹330, ₹220 and ₹560, respectively, then they are in the ratio of 2 : 5 : 3. What is the original share (in ₹) of Komal?

₹8,870 की एक धनराशि को विक्रम, कोमल और ऋषि के बीच इस प्रकार विभाजित किया जाता है कि यदि उनके हिस्सों में क्रमशः ₹330, ₹220 और ₹560 की कमी कर दी जाए, तो वे 2 : 5 : 3 के अनुपात में होते हैं। कोमल का मूल हिस्सा (₹ में) कितना है?

(1) 4,152

(2) 4,048

(3) **4,100** ✔

(4) 4,088

Q.116 The difference between the outer and inner curved surface areas of a metallic cylindrical pipe is 5280 cm^2. The inner and outer radii of the cylindrical pipe are r_1 and r_2, respectively, and $r_1 + r_2 = 33$ cm. If the length of the pipe is 280 cm, then find r_1 and r_2. [Use $\pi = 22/7$]

एक धात्विक बेलनाकार पाइप के बाह्य और आंतरिक वक्र पृष्ठीय क्षेत्रफलों का अंतर 5280 cm^2 है। बेलनाकार पाइप की आंतरिक और बाह्य त्रिज्याएँ क्रमशः r_1 और r_2 हैं और $r_1 + r_2 = 33$ cm है। यदि पाइप की लंबाई 280 cm है, तो r_1 और r_2 ज्ञात कीजिए। [$\pi = 22/7$ का उपयोग कीजिए]

(1) 14 cm, 19 cm
(2) 20 cm, 13 cm
(3) **15 cm, 18 cm ✔**
(4) 16 cm, 17 cm

Q.117 If the lateral surface area of a cylinder is 247.3 cm^2 and its height is 33 cm, then find its volume. (Use $\pi = 3.14$ and round off your answer to two decimal places)

यदि किसी बेलन का पार्श्व पृष्ठीय क्षेत्रफल 247.3 cm^2 है और उसकी ऊंचाई 33 cm है, तो उसका आयतन ज्ञात कीजिए। ($\pi = 3.14$ का उपयोग करें और अपने उत्तर को दशमलव के दो स्थानों तक पूर्णांकित करें)

(1) **147.55 cm^3 ✔**
(2) 196.05 cm^3
(3) 178.05 cm^3
(4) 146.63 cm^3

Q.118 The prices of articles of types P, Q and R are ₹280, ₹180 and ₹100, respectively. Tejas buys articles of each type in the ratio 1 : 4 : 1 for a total of ₹4,400. How many articles of type Q did he buy?

P, Q और R प्रकार की वस्तुओं के मूल्य क्रमशः ₹280, ₹180 और ₹100 हैं। तेजस प्रत्येक प्रकार की वस्तुओं को 1 : 4 : 1 के अनुपात में कुल ₹4,400 में खरीदता है। उसने Q प्रकार की कितनी वस्तुएं खरीदीं?

(1) 22
(2) 11
(3) 20
(4) **16 ✔**

Q.119 The ratio of the heights of a right circular cone and a right circular cylinder is 9 : 8 and the ratio of the radii of their bases is 4 : 3. If the volume of the cylinder is 288 cm^3, then find the volume (in cm^3) of the cone.

एक लंब वृत्तीय शंकु और एक लंब वृत्तीय बेलन की ऊँचाइयों का अनुपात 9 : 8 है और उनके आधारों की त्रिज्या का अनुपात 4 : 3 है। यदि बेलन का आयतन 288 cm^3 है, तो शंकु का आयतन (cm^3 में) ज्ञात कीजिए।

(1) 188
(2) 201
(3) 199
(4) **192 ✔**

Q.120 Pipe A fills a tank in 8 hours and pipe B empties it in 12 hours. After pipe A is turned on alone for 4 hours, pipe B is also turned on. How much time will it take to fill the tank completely after pipe B is turned on?

पाइप A एक टैंक को 8 घंटे में भरता है और पाइप B उसे 12 घंटे में खाली करता है। पाइप A को अकेले 4 घंटे तक चालू करने के बाद, पाइप B को भी चालू कर दिया जाता है। पाइप B के चालू होने के बाद टैंक को पूरी तरह से भरने में कितना समय लगेगा?

(1) 12 hours / 12 घंटे ✔

(2) 13 hours / 13 घंटे

(3) 11 hours / 11 घंटे

(4) 10 hours / 10 घंटे

English Language and Comprehension

Q.121 First part of a sentence is fixed marked as 1 while other parts are broken into segments marked as PQRS. These four parts are not given in their proper order. Read the sentences and find out which of the four combinations is correct.

1. Motions and resolutions P) Raise a discussion in the Q) House on a matter of R) Are procedural devices to S) General public interest

(1) SPQR

(2) QSPR

(3) RQPS

(4) RPQS ✔

Q.122 Select the most appropriate article to fill in the blank. If no article is needed, select 'No article required'.

She is learning to play _____ piano.

(1) an

(2) the ✔

(3) a

(4) No article required

Q.123 Complete the sentence by choosing the correct adjective.

The teacher appreciated his _____ attitude towards completing the assignments on time.

(1) diligent ✔

(2) cautious

(3) negligent

(4) indifferent

Q.124 Choose the most suitable option to complete the sentence.

Neha has been researching climate change solutions ____ collaboration with international scientists.

(1) by

(2) in ✔

(3) at

(4) on

Q.125 Parts of a sentence are given below in jumbled order. Arrange the parts in the correct order to form a meaningful sentence.
P) are giving people a chance to connect Q) social media platforms like R) with each other across distances S) Facebook, Instagram, Twitter and more

(1) RSPQ
(2) QSPR ✔
(3) PQSR
(4) SPQR

Q.126 Choose the correct form of past tense for the sentence below.
The committee regularly meets every Friday to discuss new proposals and reviews previous meeting notes before making decisions.

(1) The committee regularly meeting every Friday to discuss new proposals and reviewing previous meeting notes before making decisions.
(2) The committee regularly met every Friday to discuss new proposals and reviewed previous meeting notes before making decisions. ✔
(3) The committee regularly has met every Friday to discuss new proposals and reviews previous meeting notes before making decisions.
(4) The committee regularly meets every Friday to discuss new proposals and reviews previous meeting notes before making decisions.

Q.127 Select the words that complete the sentence.
The model ___ converged on a stable solution and ___ outperformed baselines across folds.

(1) nearly / dramatically ✔
(2) nearly / dramatic
(3) near / dramatically
(4) near / dramatic

Q.128 In the given question, a statement is divided into different segments (namely O, P, Q and R). Rearrange all the segments to form a coherent sentence. Select your answer from the options given.
(R) to this to rest / (O) a few feet to the left / (P) was a narrow ledge and / (Q) I eased across on

(1) OPQR ✔
(2) QPOR
(3) RPOQ
(4) ORQP

Q.129 From the options given choose the correct one-word substitution for - To destroy completely

(1) Inscrutable
(2) Ameliorate
(3) Innuendo
(4) Annihilate ✔

Q.130 Select the correct option to complete the given sentence.
She possesses _____ extraordinary talent for playing the violin.

(1) a
(2) the
(3) **an ✔**
(4) No Article

Q.131 Identify the correct one-word substitution for the given idea/definition.
A story, poem, or picture that can be interpreted to reveal a hidden meaning, typically a moral or political one

(1) **Allegory ✔**
(2) Treatise
(3) Manifesto
(4) Narrative

Q.132 Choose the most suitable option to complete the sentence:
Neha _____ the report to the committee with a well-researched data on Tuesday.

(1) submitting
(2) **submitted ✔**
(3) submit
(4) submits

Q.133 Select the most appropriate one-word substitute for the underlined segment in the given sentence:
The CEO's sudden resignation caused a complete lack of order and organization within the company.

(1) exasperation
(2) repose
(3) reprisal
(4) **turmoil ✔**

Q.134 Parts of a sentence are given below in jumbled order. Arrange the parts in the correct order to form a meaningful sentence.
1. a variety of books
2. to expand your knowledge
3. it is important to read
4. on different subjects

(1) 1324
(2) 3412
(3) 2314
(4) **3142 ✔**

Q.135 Select the option that best substitutes the following phrase:
A government by a king or queen

(1) democracy
(2) autocracy
(3) plutocracy
(4) **monarchy ✔**

Q.136 Identify the most suitable title for the passage.

(1) Reconsidering The Value Of Traditional Tales ✔

(2) The Growing Homework Demands Of Modern Schools

(3) Health Tips For Taking Care Of Grandmothers

(4) Finding Young Workers For Community Centers

Q.137 Identify the central theme of the passage.

(1) Simple stories effectively teach moral values to young children. ✔

(2) Joining neighborhood clubs improves public speaking abilities greatly.

(3) Learning success depends entirely on strict academic examinations.

(4) Modern families usually live in large urban metropolitan cities.

Q.138 Identify the facts given in the passage.

(1) Lakshmi experienced two different personal beliefs. ✔

(2) Lakshmi gathered four books of ancient folklore.

(3) Lakshmi visited three local activity facilities.

(4) Lakshmi managed five school reading schedules.

Q.139 Identify the structure of the passage.

(1) Childhood exposure followed by skepticism and validation ✔

(2) Classroom lesson followed by examination and grading

(3) Family argument followed by official legal agreements

(4) Professional training followed by intense system criticism

---

Q.140 Identify the tone of the passage.

(1) Difficult and scientific about brain data points

(2) Sad and worried about severe family trouble

(3) Calm and narrative about personal growth ✔

(4) Angry and critical about public education rules

Q.141 Select the idiom that can be used as a substitute for the underlined part of the following sentence.
She worked late into the night to finish her project.

(1) break the ice

(2) let the cat out of the bag

(3) turn a blind eye

(4) burn the midnight oil ✔

Q.142 Select the most appropriate option to substitute the underlined word segment in the given sentence.
His parents guided him that time is valuable and should not be wasted.

(1) Time is the wisest counsellor

(2) Time the deed to the need

(3) Time is money ✔

(4) Time has wings

Q.143 Select the INCORRECTLY spelt word.

(1) Privilege

(2) Beginning

(3) **Perseverence ✔**

(4) Calendar

Q.144 Choose the antonym of the underlined word in the sentence below.
She gave a vague explanation for her absence.

(1) brief

(2) ambiguous

(3) confusing

(4) **clear ✔**

Q.145 Select the most appropriate option to fill in the given blank.
Indirect speech: He told us to be quiet.
Direct speech: He said, "___ quiet."

(1) **Be ✔**

(2) Being

(3) To be

(4) Are

Q.146 Describe what your lawyer said in a meeting to your niece in direct speech.
Select the correct option.

(1) **The lawyer said, "You must be very careful in filing a false complaint against him." ✔**

(2) The lawyer asked, "She must be very careful in filing a false complaint against him."

(3) The lawyer said, "She must be very careful in file a false complaint against him."

(4) "The lawyer said that she had to be very careful in filing a false complaint against him."

Q.147 Select the option that is the most appropriate antonym of the highlighted word in the given sentence.
The king was very hostile towards his enemies.

(1) **friendly ✔**

(2) difficult

(3) cold

(4) aggressive

Q.148 Select the most appropriate option to substitute the underlined segment in the given sentence.
Although the vintage car needed some engine work, Mr. Moideen, my grandfather decided to buy it anyway, believing that a diamond with a flaw is better than a common stone that is perfect.

(1) Work smart to be victorious

(2) Imperfections make things more valuable

(3) **Flawed excellence beats perfect mediocrity ✔**

(4) It is best to know everything

Q.149 A sentence is given here with some highlighted text. Select the option which can replace the highlighted text.
My father always told me that to succeed, you have to rely on your own efforts, without expecting help from other.

(1) pull yourself up by your bootstraps ✔
(2) beat around the bush
(3) let the cat out of the bag
(4) put your best foot forward

Q.150 Select the most appropriate ANTONYM of the word 'agitation' in the given sentence.
Nature's beauty surrounds us, a calming canvas that whispers serenity to the soul.

(1) Beauty
(2) Surrounds
(3) Serenity ✔
(4) Whispers

Q.151 A sentence is given in Active voice. Out of the four alternatives given, select the one that best expresses the same sentence in Passive voice.
The inquiry panel had also detailed the mysterious disappearance of gold bars from the safety locker.

(1) The mysterious disappearance of gold bars from the safety locker have also been detailed by the inquiry panel
(2) The mysterious disappearance of gold bars from the safety locker were detailed by the inquiry panel
(3) The mysterious disappearance of gold bars from the safety locker had also been detailed by the inquiry panel. ✔
(4) The mysterious disappearance of gold bars from the safety locker has also been detailed by the inquiry panel

---

Q.152 Rectify the sentence by selecting the correct spelling from the options.
The thousand injuries of Fortunato I had borne as I best could, but when he ventureed upon insult I vowed revenge.

(1) veentured
(2) ventured ✔
(3) venturred
(4) venchured

Q.153 Select the most appropriate ANTONYM of the underlined word.
Aaruvi had a curious mind; she always asked questions about space.

(1) Caring
(2) Fierce
(3) Apathetic ✔
(4) Beautiful

Q.154 Select the option that expresses the given sentence in active voice.
Do not be blinded by Sheena's beauty.

(1) Sheena's beauty should not blind you.

(2) Do not let yourself be blinded by Sheena's beauty.

(3) Do not let Sheena's beauty blind you. ✔

(4) Do not fall prey to Sheena's beauty.

Q.155 Choose the correct form of past tense for the sentence below.
The research team conducts experiments in the laboratory and publishes their findings in renowned scientific journals throughout the year.

(1) The research team conducts experiments in the laboratory and publishes their findings in renowned scientific journals throughout the year.

(2) The research team conducting experiments in the laboratory and publishing their findings in renowned scientific journals throughout the year.

(3) The research team conduct experiments in the laboratory and publishes their findings in renowned scientific journals throughout the year.

(4) The research team conducted experiments in the laboratory and published their findings in renowned scientific journals throughout the year. ✔

Q.156 What is the most appropriate title for the passage?

(1) The Growing Importance of Urban Green Spaces in Modern City Life ✔

(2) The Protection of Wildlife Species Living in Rural Forest Regions Worldwide

(3) The Rapid Expansion of Industrial Development in Modern Urban Cities Worldwide

(4) The Increasing Traffic Problems Affecting Large Metropolitan Cities Across Countries

---

Q.157 What is the central theme of the passage?

(1) Green spaces contribute significantly toward healthier and more sustainable urban communities. ✔

(2) Cities should completely stop construction activities to protect natural environmental resources.

(3) Public parks are mainly designed for recreational activities enjoyed by younger children exclusively.

(4) Pollution problems can never be effectively controlled in highly populated urban regions globally.

Q.158 According to the passage, how do green spaces benefit people?

(1) By replacing educational institutions and administrative buildings within highly populated urban communities completely.

(2) By reducing stress levels and improving overall physical and mental human well-being considerably. ✔

(3) By creating additional transportation facilities and increasing traffic movement across urban neighborhoods regularly.

(4) By encouraging industrial growth and increasing employment opportunities within expanding urban environments significantly.

Q.159 Which inference can be drawn from the passage?

(1) Urban green spaces will likely remain essential for future sustainable city development projects worldwide. ✔

(2) Governments strongly oppose preserving parks and community gardens within highly populated urban environments today.

(3) Wealthy residential neighborhoods benefit exclusively from public parks and urban green space development initiatives.

(4) Environmental pollution problems have completely disappeared from all rapidly developing modern urban societies globally.

Q.160 What is the tone of the passage?

(1) Angry and critical regarding industrial expansion affecting environmental conditions in urban societies internationally today.

(2) Informative and encouraging toward sustainable environmental development practices in modern urban communities worldwide. ✔

(3) Emotional and nostalgic about traditional village lifestyles existing before modern urbanization developments globally occurred.

(4) Humorous and entertaining about recreational activities occurring inside public parks and gardens regularly worldwide.

Hindi Language and Comprehension

Q.161 निम्नलिखित वाक्य में शुद्ध वाक्य का चयन करें-

(1) अपने काव्य में चित्रण किया है मर्यादित तुलसी ने श्रृंगार का।

(2) श्रृंगार का काव्य में अपने किया है चित्रण मर्यादित तुलसी ने।

(3) मर्यादित चित्रण किया है तुलसी ने काव्य में अपने श्रृंगार का।

(4) तुलसी ने श्रृंगार का मर्यादित चित्रण अपने काव्य में किया है। ✔

Q.162 दिए गए वाक्य में उचित सार्वनामिक विशेषण का चयन करके रिक्त स्थान की पूर्ति करें- समाज, संस्कृति को निर्धारित करता है और संस्कृति ------मानदंडों, मूल्यों और व्यवहारों को आकार देती है।

(1) श्रेष्ठ

(2) बहुत

(3) उसके ✔

(4) उचित

Q.163 नीचे दिए गए वाक्यों में से सही वाक्य-क्रम का चयन कीजिए।

(1) वह विद्यालय राजकीय में पढ़ता है ।

(2) विद्यालय वह राजकीय में पढ़ता है ।

(3) वह राजकीय विद्यालय में पढ़ता है । ✔

(4) राजकीय विद्यालय में पढ़ता है वह ।

Q.164 सही विकल्प का चयन कर रिक्त स्थान की पूर्ति करें।
'ठीक समय पर आ जाना' में_____कारक है।

(1) कर्म
(2) संप्रदान
(3) करण
(4) **अधिकरण ✔**

Q.165 दिये गये विकल्पों में से सही कारक चुनकर वाक्य को सार्थक ढंग से पूरा करें- पिता ने जेब से पैसे निकालकर सुमन ..... दिये।

(1) से
(2) **को ✔**
(3) ने
(4) द्वारा

Q.166 विशेषण के आधार पर वाक्य पूर्ण कीजिए।
मौर्य साम्राज्य ने एक _____ क्षेत्र पर शासन किया।

(1) अधिकृत
(2) संस्कृत
(3) प्राकृत
(4) **विस्तृत ✔**

Q.167 उपयुक्त क्रिया विशेषण का चयन कर वाक्य को पूर्ण कीजिए।
बारिश .....हो रही है।

(1) जल्दी से
(2) **सुबह से ✔**
(3) चुपके से
(4) मन से

Q.168 नीचे दिए गए वाक्य के किस भाग में अशुद्धि है?
शर्मा जी को मीटिंग का समाचार भेज दो ।

(1) भेज दो
(2) **का समाचार ✔**
(3) शर्मा जी को
(4) मीटिंग

Q.169 दिये गये विकल्पों में से सही कारक चुनकर वाक्य को सार्थक ढंग से पूरा करें- हमें मालूम है कि तिरंगा भारत ..... राष्ट्रीय ध्वज है।

(1) को
(2) के लिए
(3) **का ✔**
(4) पर

Q.170 सही कारक चिह्नों का प्रयोग कर दिये गये वाक्य को पूर्ण कीजिए- 'पिलेवान हाथी पर .....गिर पड़ा।'

(1) के द्वारा
(2) के लिए
(3) ऊपर
(4) **से ✔**

Q.171 दिये गये वाक्यों में से कौन सा वाक्य शुद्ध है?

(1) मेरा बेटा खेलता बहुत अच्छा है क्रिकेट।

(2) बहुत अच्छा क्रिकेट खेलता है मेरा बेटा।

(3) खेलता है बहुत मेरा बेटा अच्छा क्रिकेट।

(4) मेरा बेटा बहुत अच्छा क्रिकेट खेलता है। ✔

Q.172 निम्नलिखित वाक्यांश के लिए सार्थक शब्द चुनिये जिसे जीता न जा सके

(1) अजसोदर

(2) अक्षय

(3) अजेय ✔

(4) अजित

Q.173 निम्नलिखित वाक्य उचित कारक का प्रयोग कर वाक्य पूर्ण करें- 'यह शिव धनुष है।'

(1) की

(2) पर

(3) ने

(4) का ✔

Q.174 निम्नलिखित वाक्यांश के लिए सार्थक शब्द चुनिये किसी के गुण दोष की विवेचना करने वाला

(1) अज्ञ

(2) आलोचक ✔

(3) अज्ञेय

(4) व्यापारी

Q.175 सही 'कारक' चिह्न का प्रयोग कर वाक्य को पूर्ण करें- 'दमयन्ती .....समोसा खाया'

(1) ने ✔

(2) से

(3) को

(4) लिए

Q.176 दिए गए गद्यांश के लिए सर्वाधिक उपयुक्त शीर्षक चुनिए :

(1) शारीरिक और मानसिक बल

(2) मोहनिद्रा

(3) विपश्यना-ध्यान ✔

(4) संयम और त्याग

Q.177 दिए गए गद्यांश का निष्कर्ष क्या है?

(1) जीवन को कर्मठ बनाने का मार्ग बताना

(2) जीवन में योग का महत्त्व बताना

(3) जीवन को सचेत और जागरूक बनाने का मार्ग बताना ✔

(4) जीवन में संन्यास का महत्त्व बताना

Q.178 गद्यांश में प्रयुक्त 'स्वाभाविक' शब्द का विलोम क्या होता है?

(1) अस्वाभाविक ✔

(2) अप्राकृतिक

(3) अनैसर्गिक

(4) अकृत्रिम

QuickSarkari.com | WhatsApp Channel | Telegram: t.me/quick_sarkari

Q.179 गद्यांश में प्रयुक्त 'गहन' शब्द का अर्थ क्या होता है?

(1) ऊपरी

(2) गहना

(3) हल्का

(4) **गंभीर ✔**

Q.180 दिए गए गद्यांश की संरचना किस प्रकार की है?

(1) नाटकीय

(2) **विश्लेषणात्मक ✔**

(3) सूचनात्मक

(4) प्रयोगात्मक

Q.181 'गंगा गए गंगादास यमुना गए यमुनादास' लोकोक्ति का उपयुक्त अर्थ होगा-

(1) सत्पथ पर चलने वाला

(2) नाराज होना

(3) **अवसरवादी होना ✔**

(4) निरीश्वरवादी होना

Q.182 निम्न विकल्पों में तद्भव शब्द चुनिए ।

(1) **अटारी ✔**

(2) क्षेत्र

(3) कूप

(4) अट्टालिका

Q.183 'चोटी का पसीना एड़ी तक आना' मुहावरे का अर्थ क्या है?

(1) अपनी दशा से संतुष्ट रहना

(2) बहुत अपव्यय करना

(3) **कड़ा परिश्रम करना ✔**

(4) चुगली करके भड़काना

Q.184 'कोण' का तद्भव शब्द होगा-

(1) **कोना ✔**

(2) कर्ण

(3) कौन

(4) कान

Q.185 दिये गये वाक्य के किस भाग में त्रुटि है?
प्रकृति की सुंदरता को शब्दों में बाँधना असंभव है।

(1) सुंदरता को

(2) **प्रकृति की ✔**

(3) शब्दों में बाँधना

(4) असंभव है

Quick Sarkari

Q.186 वाक्य के त्रुटिपूर्ण रेखांकित अंश के लिए निम्नांकित विकल्पों में से उपयुक्त शब्द का चयन करके वाक्य को शुद्ध करें- छिपकिली कीड़े मकौड़े खाती है।

(1) छिपकाली

(2) **छिपकली ✔**

(3) छिप्काली

(4) चिप्काली

Q.187 दिए गए वाक्य में रिक्त स्थान के लिए उपयुक्त शब्द चुनें।
तुम उसे अपनी ..... बहन समझो।

(1) छोटे

(2) छोट

(3) छोटा

(4) **छोटी ✔**

Q.188 दूध का दूध पानी का पानी करना - मुहावरे का सही अर्थ होगा -

(1) **उचित इंसाफ करना ✔**

(2) बहुत छोटा लड़का

(3) बिना कलंक का

(4) बहुत दिनों बाद दिखना

Q.189 'आँखों में धूल झोंकना' मुहावरे का सही अर्थ है –

(1) **धोखा देना ✔**

(2) कष्ट पहुँचाना

(3) मार देना

(4) चालाकी

Q.190 निम्नलिखित शब्दों में से कौन सा शब्द तत्सम नहीं है?

(1) **समुन्दर ✔**

(2) महाराष्ट्र

(3) चक्र

(4) अन्न

Q.191 निम्नलिखित मुहावरे का अर्थ बताएं - 'इज्जत अपने हाथ होना'

(1) बेकार की बातें करना

(2) **मर्यादा का वश में होना ✔**

(3) समाप्त करना

(4) चुपचाप दुःख सह लेना

Q.192 निम्नलिखित विकल्पों में से सही शब्द का चयन कर वाक्य को पूर्ण करें।
'पिंकी रोज पुस्तकालय जाती है।' इस वाक्य में _____ क्रिया है।

(1) निश्चय बोधक

(2) **अभ्यास बोधक ✔**

(3) शक्ति बोधक

(4) इच्छा बोधक

Q.193 निम्नलिखित विकल्पों में से अनेकार्थी शब्द 'दाम' का एक अर्थ नहीं है ?

(1) रस्सी

(2) **शराब ✔**

(3) मूल्य

(4) धन

Q.194 ..... कस्तूरी मृग के भीतर ही वास करती है। उपर्युक्त विशेषण का चयन करके वाक्य पूर्ण करें-

(1) दयालु

(2) **सुगंधित ✔**

(3) सगुण

(4) विशिष्ट

Q.195 'गुदड़ी का लाल' लोकोक्ति का सामान्य अर्थ क्या है?

(1) **साधारण परिवार से निकलकर असाधारण प्रतिभा वाला व्यक्ति। ✔**

(2) महंगे वस्त्र पहनने वाला धनी व्यक्ति।

(3) असाधारण परिवार से निकलकर साधारण प्रतिभा वाला व्यक्ति।

(4) गुदड़ी (पुराना कपड़ा) पहनने वाला गरीब व्यक्ति।

Q.196 गद्यांश के लिए सबसे उपयुक्त शीर्षक क्या होगा?

(1) **सत्संगति और चरित्र निर्माण ✔**

(2) मनुष्य और सामाजिकता

(3) काजल की कोठरी की कालिमा

(4) मित्रता की परिभाषा

Q.197 गद्यांश के अनुसार मनुष्य की पहचान कैसे होती है?

(1) उसकी धन-सम्पदा से

(2) उसकी वेशभूषा से

(3) **उसकी संगति से ✔**

(4) उसकी चतुरता से

Q.198 सत्संगति का मनुष्य पर क्या प्रभाव पड़ता है?

(1) इससे समाज में उसके शत्रु बढ़ जाते हैं

(2) **वह साधारण से महानता की ओर अग्रसर होता है ✔**

(3) इससे व्यक्ति अभिमानी हो जाता है

(4) वह बहुत धनी बन जाता है

Q.199 गद्यांश में 'काजल की कोठरी' का उदाहरण क्यों दिया गया है?

(1) अँधेरे के डर को दिखाने के लिए

(2) व्यक्ति की चतुरता की परीक्षा लेने के लिए

(3) काजल के व्यापार को समझाने के लिए

(4) **कुसंगति के अनिवार्य दुष्प्रभाव को बताने के लिए ✔**

Q.200 छात्र जीवन में मित्रों का चयन करते समय सावधानी क्यों आवश्यक है?

(1) क्योंकि मित्र केवल पढ़ाई में ही सहायता करते हैं

(2) **क्योंकि छात्र जीवन में संस्कार कच्ची मिट्टी की तरह होते हैं ✔**

(3) मित्रों के माध्यम से परीक्षा में नक़ल कर सफलता प्राप्त की जा सकती है

(4) क्योंकि छात्र बहुत मासूम और सरल होते हैं

QuickSarkari.com | WhatsApp Channel | Telegram: t.me/quick_sarkari

Answer Key / उत्तर कुंजी

1 2	**2** 3	**3** 3	**4** 1	**5** 4	**6** 4	**7** 1	**8** 1	**9** 1	**10** 3	**11** 3	**12** 2	**13** 3	**14** 4	**15** 4
16 3	**17** 3	**18** 4	**19** 3	**20** 1	**21** 4	**22** 3	**23** 4	**24** 2	**25** 3	**26** 2	**27** 4	**28** 4	**29** 4	**30** 2
31 4	**32** 1	**33** 3	**34** 1	**35** 3	**36** 3	**37** 3	**38** 3	**39** 3	**40** 4	**41** 4	**42** 3	**43** 1	**44** 2	**45** 1
46 2	**47** 2	**48** 2	**49** 3	**50** 3	**51** 4	**52** 2	**53** 3	**54** 4	**55** 2	**56** 3	**57** 2	**58** 3	**59** 4	**60** 3
61 3	**62** 1	**63** 3	**64** 3	**65** 4	**66** 3	**67** 1	**68** 3	**69** 2	**70** 4	**71** 1	**72** 1	**73** 3	**74** 2	**75** 3
76 4	**77** 4	**78** 3	**79** 4	**80** 2	**81** 4	**82** 3	**83** 2	**84** 2	**85** 1	**86** 3	**87** 1	**88** 1	**89** 3	**90** 4
91 1	**92** 3	**93** 1	**94** 2	**95** 3	**96** 3	**97** 3	**98** 4	**99** 2	**100** 4	**101** 1	**102** 2	**103** 2	**104** 3	**105** 3
106 1	**107** 4	**108** 1	**109** 2	**110** 1	**111** 3	**112** 4	**113** 4	**114** 3	**115** 3	**116** 3	**117** 1	**118** 4	**119** 4	**120** 1
121 4	**122** 2	**123** 1	**124** 2	**125** 2	**126** 2	**127** 1	**128** 1	**129** 4	**130** 3	**131** 1	**132** 2	**133** 4	**134** 4	**135** 4
136 1	**137** 1	**138** 1	**139** 1	**140** 3	**141** 4	**142** 3	**143** 3	**144** 4	**145** 1	**146** 1	**147** 1	**148** 3	**149** 1	**150** 3
151 3	**152** 2	**153** 3	**154** 3	**155** 4	**156** 1	**157** 1	**158** 2	**159** 1	**160** 2	**161** 4	**162** 3	**163** 3	**164** 4	**165** 2
166 4	**167** 2	**168** 2	**169** 3	**170** 4	**171** 4	**172** 3	**173** 4	**174** 2	**175** 1	**176** 3	**177** 3	**178** 1	**179** 4	**180** 2
181 3	**182** 1	**183** 3	**184** 1	**185** 2	**186** 2	**187** 4	**188** 1	**189** 1	**190** 1	**191** 2	**192** 2	**193** 2	**194** 2	**195** 1
196 1	**197** 3	**198** 2	**199** 4	**200** 2										

QuickSarkari.com | WhatsApp Channel | Telegram: t.me/quick_sarkari

Quick Sarkari

Thank you for studying with QuickSarkari!

Get the latest Sarkari Naukri notifications, admit cards, results, answer keys and free previous-year papers first - follow us on WhatsApp and Telegram.

Visit www.quicksarkari.com

Join our WhatsApp Channel

https://whatsapp.com/channel/0029VaxxbrREquiPoXTWM229

Join our Telegram Channel

https://t.me/quick_sarkari

Share this PDF with your friends preparing for DSSSB exams.