Quick Sarkari

DSSSB PREVIOUS YEAR PAPER WITH ANSWER KEY

DSSSB Reporter

3 September 2026 · Shift 2

डीएसएसएसबी रिपोर्टर – 3 सितंबर 2026, शिफ्ट 2 का प्रश्न पत्र, उत्तर कुंजी सहित

200	120 min	1 / −0.25	EN + HI
Questions / प्रश्न	Duration / समय	Marks per Q / अंक	Language / भाषा

Sections: General Awareness, General intelligence and Reasoning Ability, Arithmetical and Numerical Ability, Hindi Language and Comprehension, English Language and Comprehension

INSIDE THIS PDF / इस PDF में

Question Paper in English + Hindi with Answer Key (correct option marked in green) + answer table Page 2–48
प्रश्न पत्र अंग्रेज़ी + हिंदी में, उत्तर कुंजी सहित (सही विकल्प हरे रंग में) + उत्तर तालिका

HOW TO USE THIS PAPER / इस पेपर का उपयोग कैसे करें

1. Attempt the paper first as a timed online mock test (link below).
   पहले नीचे दिए लिंक से इसे टाइमर के साथ ऑनलाइन मॉक टेस्ट के रूप में हल करें।
2. Check your score, section-wise analysis and solutions online.
   ऑनलाइन अपना स्कोर, खंड-वार विश्लेषण और हल देखें।
3. Use this PDF for revision. Correct answers are shown in green.
   दोहराने के लिए इस PDF का उपयोग करें। सही उत्तर हरे रंग में दिए गए हैं।

Attempt this paper as a FREE online mock test

इस पेपर को फ्री ऑनलाइन मॉक टेस्ट के रूप में हल करें – टाइमर, स्कोर और हल के साथ

https://quicksarkari.com/dsssb-reporter-03-september-2026-shift-2-mock-test/

All DSSSB Reporter papers and mock tests: **quicksarkari.com/dsssb-mock-test/#reporter**

Join WhatsApp Channel | Join Telegram Channel

DSSSB Reporter – Question Paper (English + Hindi)

DSSSB रिपोर्टर – प्रश्न पत्र (अंग्रेज़ी + हिंदी)

Exam held on 3 September 2026, Shift 2 · 200 questions · correct answers marked ✔ in green
परीक्षा तिथि 3 सितंबर 2026, शिफ्ट 2 · 200 प्रश्न · सही उत्तर हरे रंग में ✔ से चिह्नित

> The official paper for this shift was in English. The Hindi version of each question is a translation prepared by QuickSarkari; the language-section questions are shown as asked.
> इस शिफ्ट का आधिकारिक प्रश्न पत्र अंग्रेज़ी में था। प्रत्येक प्रश्न का हिंदी संस्करण QuickSarkari द्वारा तैयार किया गया अनुवाद है; भाषा खंड के प्रश्न मूल रूप में दिए गए हैं।

General Awareness

Q.1 In December 2025, which country assumed the BRICS presidency, emphasizing innovation and sustainability?
दिसंबर 2025 में, नवाचार और संधारणीयता पर बल देते हुए किस देश ने ब्रिक्स (BRICS) की अध्यक्षता ग्रहण की?

(1) South Africa / दक्षिण अफ्रीका
(2) **India / भारत ✔**
(3) Russia / रूस
(4) Brazil / ब्राज़ील

Q.2 Who among the following founded the Arya Mahila Samaj?
निम्नलिखित में से किसने आर्य महिला समाज की स्थापना की थी?

(1) Sarojini Naidu / सरोजिनी नायडू
(2) **Pandita Ramabai / पंडिता रमाबाई ✔**
(3) Jyotiba Phule / ज्योतिबा फुले
(4) Begum Rokeya / बेगम रोकेया

Q.3 As per Article 243S of the Indian Constitution, what is the minimum population required for a territorial area of municipality to constitute Ward Committees?
भारतीय संविधान के अनुच्छेद 243S के अनुसार, वार्ड समितियों के गठन के लिए किसी नगरपालिका के प्रादेशिक क्षेत्र की न्यूनतम जनसंख्या कितनी होनी आवश्यक है?

(1) **3 lakh population / 3 लाख जनसंख्या ✔**
(2) 5 lakh population / 5 लाख जनसंख्या
(3) 1 lakh population / 1 लाख जनसंख्या
(4) 7 lakh population / 7 लाख जनसंख्या

Q.4 Which of the following financial institutions released the World Economic Outlook Update titled “Global Economy – Steady amid Divergent Forces” in January 2026?
निम्नलिखित में से किस वित्तीय संस्था ने जनवरी 2026 में “Global Economy – Steady amid Divergent Forces” (वैश्विक अर्थव्यवस्था – भिन्न-भिन्न शक्तियों के बीच स्थिर) शीर्षक से विश्व आर्थिक परिदृश्य अद्यतन (World Economic Outlook Update) जारी किया?

(1) Multilateral Investment Guarantee Agency / बहुपक्षीय निवेश गारंटी एजेंसी
(2) International Finance Corporation / अंतर्राष्ट्रीय वित्त निगम
(3) Asian Development Bank / एशियाई विकास बैंक
(4) **International Monetary Fund / अंतर्राष्ट्रीय मुद्रा कोष ✔**

Q.5 At which of the following places was the second session of the Indian National Congress held under the presidency of Dadabhai Naoroji?

दादाभाई नौरोजी की अध्यक्षता में भारतीय राष्ट्रीय कांग्रेस का दूसरा अधिवेशन निम्नलिखित में से किस स्थान पर आयोजित हुआ था?

(1) Allahabad / इलाहाबाद

(2) Madras / मद्रास

(3) Bombay / बंबई

(4) **Calcutta / कलकत्ता ✔**

Q.6 Under which Article of the Constitution of India has the Supreme Court recognised menstrual health as a fundamental right linked to dignity, equality, health, and access to education?

सर्वोच्च न्यायालय ने भारत के संविधान के किस अनुच्छेद के अंतर्गत मासिक धर्म स्वास्थ्य को गरिमा, समानता, स्वास्थ्य और शिक्षा तक पहुँच से जुड़े एक मौलिक अधिकार के रूप में मान्यता दी है?

(1) Article 14 / अनुच्छेद 14

(2) Article 15 / अनुच्छेद 15

(3) **Article 21 / अनुच्छेद 21 ✔**

(4) Article 19 / अनुच्छेद 19

Q.7 In January 2026, which government body organised a national event emphasising AI and digital health innovations under the Ayushman Bharat Digital Mission to strengthen healthcare technology deployment?

जनवरी 2026 में, स्वास्थ्य सेवा प्रौद्योगिकी के परिनियोजन को सुदृढ़ करने हेतु आयुष्मान भारत डिजिटल मिशन के अंतर्गत AI और डिजिटल स्वास्थ्य नवाचारों पर बल देते हुए किस सरकारी निकाय ने एक राष्ट्रीय कार्यक्रम आयोजित किया?

(1) Ministry of Electronics and Information Technology (MeitY) / इलेक्ट्रॉनिकी और सूचना प्रौद्योगिकी मंत्रालय (MeitY)

(2) All India Institute of Medical Sciences (AIIMS) / अखिल भारतीय आयुर्विज्ञान संस्थान (AIIMS)

(3) **National Health Authority (NHA) / राष्ट्रीय स्वास्थ्य प्राधिकरण (NHA) ✔**

(4) Indian Council of Medical Research (ICMR) / भारतीय आयुर्विज्ञान अनुसंधान परिषद (ICMR)

Q.8 The Mauryan Empire is known for its patronage of Buddhism. Which of the following rulers converted to Buddhism and promoted its teachings?

मौर्य साम्राज्य बौद्ध धर्म को संरक्षण देने के लिए जाना जाता है। निम्नलिखित में से किस शासक ने बौद्ध धर्म अपनाया और इसकी शिक्षाओं का प्रचार किया?

(1) Brihadratha / बृहद्रथ

(2) Chandragupta Maurya / चंद्रगुप्त मौर्य

(3) **Ashoka / अशोक ✔**

(4) Bindusara / बिंदुसार

Q.9 In November 2025, Indian Space Research Organisation (ISRO) conducted an important test on the Main Parachutes for the Gaganyaan Crew Module at which of the following locations?

नवंबर 2025 में, भारतीय अंतरिक्ष अनुसंधान संगठन (ISRO) ने गगनयान क्रू मॉड्यूल के मुख्य पैराशूटों का एक महत्वपूर्ण परीक्षण निम्नलिखित में से किस स्थान पर किया?

(1) Sriharikota, Andhra Pradesh / श्रीहरिकोटा, आंध्र प्रदेश

(2) Pokhran Field Firing Range, Rajasthan / पोखरण फील्ड फायरिंग रेंज, राजस्थान

(3) Chandipur Test Range, Odisha / चांदीपुर परीक्षण रेंज, ओडिशा

(4) **Babina Field Firing Range, Uttar Pradesh / बबीना फील्ड फायरिंग रेंज, उत्तर प्रदेश ✔**

Q.10 In September 2025, which Indian company introduced the country's first indigenous gE-deleted DIVA marker vaccine for preventing Infectious Bovine Rhinotracheitis (IBR)?

सितंबर 2025 में, किस भारतीय कंपनी ने संक्रामक बोवाइन राइनोट्रेकाइटिस (IBR) की रोकथाम के लिए देश का पहला स्वदेशी gE-डिलीटेड DIVA मार्कर टीका प्रस्तुत किया?

(1) Serum Institute of India Private Limited / सीरम इंस्टीट्यूट ऑफ इंडिया प्राइवेट लिमिटेड

(2) Hester Biosciences Limited / हेस्टर बायोसाइंसेज लिमिटेड

(3) Bharat Biotech International Limited / भारत बायोटेक इंटरनेशनल लिमिटेड

(4) Indian Immunologicals Limited / इंडियन इम्यूनोलॉजिकल्स लिमिटेड ✔

Q.11 Exercise MAITREE-XIV, the India–Thailand joint army exercise held in 2025, was hosted in which northeastern Indian state?

वर्ष 2025 में आयोजित भारत–थाईलैंड संयुक्त सैन्य अभ्यास, अभ्यास मैत्री-XIV (MAITREE-XIV) की मेज़बानी पूर्वोत्तर भारत के किस राज्य ने की?

(1) Manipur / मणिपुर

(2) Sikkim / सिक्किम

(3) Meghalaya / मेघालय ✔

(4) Arunachal Pradesh / अरुणाचल प्रदेश

Q.12 Which of the following Acts introduced a system of communal representation for Muslims by accepting the concept of 'separate electorate' in British India?

निम्नलिखित में से किस अधिनियम ने ब्रिटिश भारत में 'पृथक निर्वाचक मंडल' की अवधारणा को स्वीकार करके मुसलमानों के लिए सांप्रदायिक प्रतिनिधित्व की प्रणाली प्रारंभ की?

(1) Indian Councils Act of 1861 / भारतीय परिषद अधिनियम, 1861

(2) Charter Act of 1853 / चार्टर अधिनियम, 1853

(3) Indian Councils Act of 1909 / भारतीय परिषद अधिनियम, 1909 ✔

(4) Indian Councils Act of 1892 / भारतीय परिषद अधिनियम, 1892

Q.13 Which of the following is the primary objective of the 'Make in India' initiative, launched in 2014?

वर्ष 2014 में शुरू की गई 'मेक इन इंडिया' पहल का प्राथमिक उद्देश्य निम्नलिखित में से कौन-सा है?

(1) Double the income of farmers by 2030. / वर्ष 2030 तक किसानों की आय दोगुनी करना।

(2) Promote India as a global hub for manufacturing. / भारत को विनिर्माण के वैश्विक केंद्र के रूप में बढ़ावा देना। ✔

(3) Achieve a 100% literacy rate in the country. / देश में 100% साक्षरता दर प्राप्त करना।

(4) Provide universal health coverage to all citizens. / सभी नागरिकों को सार्वभौमिक स्वास्थ्य कवरेज प्रदान करना।

Q.14 Which of the following best describes the administrative pattern of the Bahmani Sultanate, characterised by a hierarchical bureaucracy, salaried officials, and governance influenced by West Asian court traditions?

पदानुक्रमित नौकरशाही, वेतनभोगी अधिकारियों और पश्चिम एशियाई दरबारी परंपराओं से प्रभावित शासन-व्यवस्था की विशेषता वाले बहमनी सल्तनत के प्रशासनिक स्वरूप का सबसे उपयुक्त वर्णन निम्नलिखित में से कौन-सा है?

(1) Decentralized Hindu monarchy / विकेंद्रीकृत हिंदू राजतंत्र

(2) Local self-governing system / स्थानीय स्वशासी व्यवस्था

(3) Persianized centralized sultanate / फ़ारसीकृत केंद्रीकृत सल्तनत ✔

(4) Military confederacy / सैन्य परिसंघ

Q.15 Under Article 352 of the Indian Constitution, which of the following threats can prompt the President of India to proclaim a National Emergency for the entire or a part of India's territory?

भारतीय संविधान के अनुच्छेद 352 के अंतर्गत, निम्नलिखित में से किन खतरों के आधार पर भारत का राष्ट्रपति भारत के संपूर्ण राज्यक्षेत्र या उसके किसी भाग में राष्ट्रीय आपातकाल की उद्घोषणा कर सकता है?

(1) Financial emergency or economic war / वित्तीय आपातकाल या आर्थिक युद्ध

(2) Failure of constitutional machinery or internal aggression / संवैधानिक तंत्र की विफलता या आंतरिक आक्रमण

(3) War, external aggression, or armed rebellion / युद्ध, बाह्य आक्रमण या सशस्त्र विद्रोह ✓

(4) Internal disturbance or financial instability / आंतरिक अशांति या वित्तीय अस्थिरता

Q.16 Which of the following events took place at Badami in 1841 related to British interference in local administration?

स्थानीय प्रशासन में ब्रिटिश हस्तक्षेप से संबंधित निम्नलिखित में से कौन-सी घटना 1841 में बादामी में हुई थी?

(1) Establishment of the first East India Company factory in Karnataka / कर्नाटक में ईस्ट इंडिया कंपनी के पहले कारखाने की स्थापना

(2) British annexation of the Hyderabad region under the Doctrine of Lapse / व्यपगत के सिद्धांत के अंतर्गत हैदराबाद क्षेत्र का ब्रिटिश विलय

(3) Signing of a trade agreement between the British and Satara rulers / अंग्रेज़ों और सतारा के शासकों के बीच एक व्यापार समझौते पर हस्ताक्षर

(4) Revolt led by Narsing Dattatraya Patekar against the British interference / ब्रिटिश हस्तक्षेप के विरुद्ध नरसिंह दत्तात्रेय पेटकर के नेतृत्व में विद्रोह ✓

Q.17 Which of the following intelligence/security agencies/ministry is NOT exempted from RTI under the Second Schedule?

निम्नलिखित में से कौन-सी आसूचना/सुरक्षा एजेंसी/मंत्रालय द्वितीय अनुसूची के अंतर्गत RTI से छूट प्राप्त नहीं है?

(1) Research and Analysis Wing / अनुसंधान और विश्लेषण विंग

(2) Border Security Force / सीमा सुरक्षा बल

(3) Intelligence Bureau / आसूचना ब्यूरो

(4) Ministry of Finance / वित्त मंत्रालय ✓

Q.18 Where was Exercise Yudh Kaushal 3.0 conducted to test multi-domain operations in high-altitude terrain?

उच्च तुंगता वाले भूभाग में बहु-क्षेत्रीय संक्रियाओं के परीक्षण के लिए अभ्यास युद्ध कौशल 3.0 कहाँ आयोजित किया गया था?

(1) Thar (Rajasthan) / थार (राजस्थान)

(2) Nilgiris (Tamil Nadu) / नीलगिरि (तमिलनाडु)

(3) Sunderbans (West Bengal) / सुंदरबन (पश्चिम बंगाल)

(4) Kameng (Arunachal Pradesh) / कामेंग (अरुणाचल प्रदेश) ✓

Q.19 Which place, known for its indigenous rock art and spanning nearly 100,000 hectares, was inscribed as a UNESCO World Heritage site in 2025 for its cultural and environmental significance?

अपनी स्वदेशी शैल कला के लिए प्रसिद्ध और लगभग 100,000 हेक्टेयर में फैले किस स्थान को उसके सांस्कृतिक और पर्यावरणीय महत्व के लिए 2025 में यूनेस्को विश्व धरोहर स्थल के रूप में अंकित किया गया?

(1) Mount Paektu, Korea / माउंट पैक्टू, कोरिया

(2) Khorramabad Valley, Iran / खोर्रमाबाद घाटी, ईरान

(3) Murujuga, Western Australia / मुरुजुगा, पश्चिमी ऑस्ट्रेलिया ✓

(4) Flow Country, Scotland / फ्लो कंट्री, स्कॉटलैंड

Q.20 Which of the following Constitutional Amendments introduced the Anti-Defection Law in India?
निम्नलिखित में से किस संविधान संशोधन द्वारा भारत में दल-बदल विरोधी कानून लागू किया गया?

(1) Forty second amendment / बयालीसवाँ संशोधन
(2) Forty fourth amendment / चवालीसवाँ संशोधन
(3) **Fifty second amendment / बावनवाँ संशोधन ✔**
(4) Ninety first amendment / इक्यानवेवाँ संशोधन

Q.21 What architectural style, introduced by the Portuguese in Goa during the 16th century, is evident in the Basilica of Bom Jesus?
16वीं शताब्दी के दौरान पुर्तगालियों द्वारा गोवा में प्रारंभ की गई कौन-सी स्थापत्य शैली बॉम जीसस बेसिलिका में दिखाई देती है?

(1) Mughal / मुगल
(2) Victorian / विक्टोरियन
(3) Gothic / गॉथिक
(4) **Baroque / बारोक ✔**

Q.22 Garba, a popular folk dance, is traditionally performed during the festival of Navratri in the state of:
गरबा, एक लोकप्रिय लोक नृत्य, पारंपरिक रूप से नवरात्रि के त्योहार के दौरान किस राज्य में किया जाता है?

(1) Maharashtra / महाराष्ट्र
(2) Uttar Pradesh / उत्तर प्रदेश
(3) **Gujarat / गुजरात ✔**
(4) Kerala / केरल

Q.23 Which of the following is NOT a characteristic of capital?
निम्नलिखित में से कौन-सा, पूंजी का एक अभिलक्षण नहीं है?

(1) A passive factor of production / उत्पादन का एक निष्क्रिय कारक
(2) **Capital does not involve any present sacrifice / पूंजी में वर्तमान में कोई त्याग शामिल नहीं होता है ✔**
(3) Highest mobility / उच्चतम गतिशीलता
(4) The supply of capital is elastic / पूंजी की आपूर्ति लोचदार होती है

Q.24 Under what conditions can the Right to Freedom of Religion be restricted by the state according to the Indian Constitution?
भारतीय संविधान के अनुसार, राज्य द्वारा धर्म की स्वतंत्रता के अधिकार को किन परिस्थितियों में प्रतिबंधित किया जा सकता है?

(1) To promote a particular religion outside the country / देश के बाहर किसी विशेष धर्म को बढ़ावा देने के लिए
(2) **On grounds of public order, morality, and health / लोक व्यवस्था, सदाचार और स्वास्थ्य के आधार पर ✔**
(3) To maintain cultural uniformity across the country / पूरे देश में सांस्कृतिक एकरूपता बनाए रखने के लिए
(4) At the discretion of any government official / किसी भी सरकारी अधिकारी के विवेक पर

Q.25 Which of the following is a key component of urban infrastructure?
निम्नलिखित में से कौन-सा शहरी अवसंरचना का एक प्रमुख घटक है?

(1) Remote forest areas / दूरस्थ वन क्षेत्र
(2) National highways connecting cities / शहरों को जोड़ने वाले राष्ट्रीय राजमार्ग
(3) Agricultural farms / कृषि फार्म
(4) **Water supply and sanitation systems / जल आपूर्ति और स्वच्छता प्रणालियाँ ✔**

Q.26 'Kayals' are peculiar features found in which of the following in India?

'कयाल' भारत में निम्नलिखित में से किसमें पाई जाने वाली विशिष्ट आकृतियाँ हैं?

(1) Western coastal plains / पश्चिमी तटीय मैदान ✔

(2) Northeastern plateau / उत्तर-पूर्वी पठार

(3) The Great Indian desert / भारतीय महा मरुस्थल

(4) Coral islands / प्रवाल द्वीप

Q.27 Victorian Gothic and Art Deco Ensembles of Mumbai was added to the UNESCO World Heritage List in _____.

मुंबई के विक्टोरियन गॉथिक और आर्ट डेको एन्सेम्बल्स को _____ में यूनेस्को की विश्व धरोहर सूची में शामिल किया गया था।

(1) 2010

(2) 2018 ✔

(3) 2013

(4) 2015

Q.28 On which lunar day of the Bhadrava Suklapaksha (August-September) is the Nuakhai festival of West Odisha observed?

पश्चिमी ओडिशा का नुआखाई त्योहार भाद्रपद शुक्लपक्ष (अगस्त-सितंबर) की किस तिथि को मनाया जाता है?

(1) Chaturthi (fourth day) / चतुर्थी (चौथा दिन)

(2) Panchami (fifth day) / पंचमी (पाँचवाँ दिन) ✔

(3) Shashti (sixth day) / षष्ठी (छठा दिन)

(4) Saptami (seventh day) / सप्तमी (सातवाँ दिन)

Q.29 The Food Corporation of India (FCI) was established during which Five-Year Plan?

भारतीय खाद्य निगम (FCI) की स्थापना किस पंचवर्षीय योजना के दौरान की गई थी?

(1) Sixth Plan / छठी योजना

(2) Third Plan / तीसरी योजना ✔

(3) Fifth Plan / पाँचवीं योजना

(4) Fourth Plan / चौथी योजना

Q.30 The general orientation of the Himalayan ranges in the northwestern part of India is____.

भारत के उत्तर-पश्चिमी भाग में हिमालय की श्रेणियों का सामान्य अभिविन्यास ____ है।

(1) North–South / उत्तर–दक्षिण

(2) East–West / पूर्व–पश्चिम

(3) Southwest–Northeast / दक्षिण-पश्चिम–उत्तर-पूर्व

(4) Northwest–Southeast / उत्तर-पश्चिम–दक्षिण-पूर्व ✔

Q.31 The Directive Principles of State Policy (DPSP) are contained in which part of the Constitution of India?

राज्य के नीति निदेशक तत्व (DPSP) भारत के संविधान के किस भाग में निहित हैं?

(1) Part III / भाग III

(2) Part IVA / भाग IVA

(3) Part V / भाग V

(4) Part IV / भाग IV ✔

Q.32 Metal oxides are generally:

धातु ऑक्साइड सामान्यतः होते हैं:

(1) Acidic / अम्लीय

(2) Neutral / उदासीन

(3) Salty / लवणीय

(4) **Basic / क्षारकीय ✔**

Q.33 What does "privatisation" mean in economic reforms?

आर्थिक सुधारों में "निजीकरण" का क्या अर्थ है?

(1) **Transferring government businesses to private ownership / सरकारी व्यवसायों को निजी स्वामित्व में हस्तांतरित करना ✔**

(2) Stopping private companies / निजी कंपनियों को बंद करना

(3) Banning exports / निर्यात पर प्रतिबंध लगाना

(4) Giving government jobs to private people / निजी लोगों को सरकारी नौकरियाँ देना

Q.34 Which of the following statements regarding the Chotanagpur Plateau is correct?

छोटानागपुर पठार के संबंध में निम्नलिखित में से कौन-सा कथन सही है?

(1) It is drained mainly by west-flowing rivers like the Tapi. / इसका अपवाह मुख्य रूप से तापी जैसी पश्चिम की ओर बहने वाली नदियों द्वारा होता है।

(2) It is mainly composed of sedimentary rocks and rich in petroleum. / यह मुख्य रूप से अवसादी चट्टानों से बना है और पेट्रोलियम से समृद्ध है।

(3) It was formed by recent volcanic eruptions. / इसका निर्माण हाल के ज्वालामुखी विस्फोटों से हुआ था।

(4) **It is a storehouse of metallic minerals due to its ancient crystalline structure. / अपनी प्राचीन क्रिस्टलीय संरचना के कारण यह धात्विक खनिजों का भंडार है। ✔**

Q.35 Which of the following urban rail transport systems in India is regarded as the busiest commuter rail network in the world, carrying several million passengers daily?

भारत में निम्नलिखित में से किस शहरी रेल परिवहन प्रणाली को विश्व का सबसे व्यस्त उपनगरीय (कम्यूटर) रेल नेटवर्क माना जाता है, जो प्रतिदिन कई मिलियन यात्रियों को ले जाती है?

(1) Kolkata Suburban Railway System / कोलकाता उपनगरीय रेलवे प्रणाली

(2) Chennai Suburban Railway System / चेन्नई उपनगरीय रेलवे प्रणाली

(3) **Mumbai Suburban Railway System / मुंबई उपनगरीय रेलवे प्रणाली ✔**

(4) Kochi Suburban Railway System / कोच्चि उपनगरीय रेलवे प्रणाली

Q.36 In India, which type of natural forest is confined to regions receiving very heavy rainfall, such as the Western Ghats, the island groups of Lakshadweep and Andaman & Nicobar, the upper parts of Assam, and the Tamil Nadu coast?

भारत में, किस प्रकार के प्राकृतिक वन पश्चिमी घाट, लक्षद्वीप और अंडमान एवं निकोबार द्वीप समूह, असम के ऊपरी भागों और तमिलनाडु तट जैसे अत्यधिक भारी वर्षा वाले क्षेत्रों तक ही सीमित हैं?

(1) Tropical deciduous forests / उष्णकटिबंधीय पर्णपाती वन

(2) Tropical thorn forests / उष्णकटिबंधीय कंटीले वन

(3) **Tropical evergreen forests / उष्णकटिबंधीय सदाबहार वन ✔**

(4) Montane coniferous forests / पर्वतीय शंकुधारी वन

Q.37 Which innovative financing method did the Greater Chennai Corporation employ in 2025 to fund storm water drainage projects?

ग्रेटर चेन्नई कॉर्पोरेशन ने 2025 में वर्षा जल निकासी परियोजनाओं के वित्तपोषण के लिए किस नवीन वित्तपोषण पद्धति का उपयोग किया?

(1) Public-Private Partnership / सार्वजनिक-निजी भागीदारी

(2) Foreign Direct Investment / प्रत्यक्ष विदेशी निवेश

(3) **Municipal Bonds / नगरपालिका बॉन्ड ✔**

(4) World Bank Loan / विश्व बैंक ऋण

Q.38 Plasma, a state of matter, is made up of a mixture of which of the following?

प्लाज़्मा, पदार्थ की एक अवस्था, निम्नलिखित में से किसके मिश्रण से बना होता है?

(1) **Positively charged Ions and electrons / धनावेशित आयन और इलेक्ट्रॉन ✔**

(2) Solids and liquids / ठोस और द्रव

(3) Protons and neutrons / प्रोटॉन और न्यूट्रॉन

(4) Atoms and negatively charged ions / परमाणु और ऋणावेशित आयन

Q.39 The primary component of natural gas is:

प्राकृतिक गैस का प्राथमिक घटक है:

(1) **Methane / मीथेन ✔**

(2) Pantane / पैंटेन

(3) Ethane / एथेन

(4) Propane / प्रोपेन

Q.40 Article 324 vests the power of superintendence, direction, and control of elections in_____.

अनुच्छेद 324 निर्वाचनों के अधीक्षण, निदेशन और नियंत्रण की शक्ति _____ में निहित करता है।

(1) The President of India / भारत के राष्ट्रपति

(2) The Union Public Service Commission / संघ लोक सेवा आयोग

(3) **The Election Commission of India / भारत निर्वाचन आयोग ✔**

(4) The Supreme Court of India / भारत के सर्वोच्च न्यायालय

General intelligence and Reasoning Ability

Q.41 This question is based on the given words.

READ PLAY CARE JUMP If in each of the words, each letter is changed to the letter immediately following it in the English alphabetical order, how many words thus formed will have no vowel?

यह प्रश्न दिए गए शब्दों पर आधारित है।

READ PLAY CARE JUMP यदि प्रत्येक शब्द के प्रत्येक अक्षर को अंग्रेज़ी वर्णमाला क्रम में उसके ठीक बाद वाले अक्षर से बदल दिया जाए, तो इस प्रकार बने कितने शब्दों में कोई स्वर नहीं होगा?

(1) One / एक

(2) None / कोई नहीं

(3) **Three / तीन ✔**

(4) Two / दो

Q.42 Seven friends, Jeewan, Khusi, Gyan, Ritu, Neera, Swati, and Madhu, are sitting in a straight line, facing the north. Madhu sits third to the left of Ritu. Neera sits second to the right of Gyan. Khushi sits second to the right of Neera. Only four people sit to the left of Khushi. Jeewan is not an immediate neighbour of Ritu. Three of the following four are alike in a certain way based on the given arrangement and thus form a group. Which is the one that does not belong to that group?

सात मित्र, जीवन, खुशी, ज्ञान, ऋतु, नीरा, स्वाति और मधु, उत्तर की ओर मुख करके एक सीधी पंक्ति में बैठे हैं। मधु, ऋतु के बाएँ से तीसरे स्थान पर बैठी है। नीरा, ज्ञान के दाएँ से दूसरे स्थान पर बैठी है। खुशी, नीरा के दाएँ से दूसरे स्थान पर बैठी है। खुशी के बाईं ओर केवल चार व्यक्ति बैठे हैं। जीवन, ऋतु का निकटतम पड़ोसी नहीं है। दी गई व्यवस्था के आधार पर निम्नलिखित चार में से तीन किसी निश्चित प्रकार से एकसमान हैं और इस प्रकार एक समूह बनाते हैं। वह कौन-सा है जो उस समूह से संबंधित नहीं है?

(1) Gyan and Jeewan / ज्ञान और जीवन

(2) Jeewan and Neera / जीवन और नीरा

(3) Neera and Madhu / नीरा और मधु

(4) **Madhu and Swati / मधु और स्वाति ✔**

Q.43 In a certain code, 'fast train arrive' is coded as 'jo me lu'
'slow train delay' is coded as 'pa me ti'
'fast bus delay' is coded as 'jo ku ti'
(all the codes are two letter coded only)
What is the possible code for "fast train"?

एक निश्चित कूट में, 'fast train arrive' को 'jo me lu' के रूप में कूटबद्ध किया जाता है 'slow train delay' को 'pa me ti' के रूप में कूटबद्ध किया जाता है 'fast bus delay' को 'jo ku ti' के रूप में कूटबद्ध किया जाता है (सभी कूट केवल दो अक्षर वाले कूट हैं)
"fast train" के लिए संभावित कूट क्या है?

(1) **jo me ✔**

(2) lu ku

(3) ti ku

(4) lu pa

Q.44 R is the brother of F. F is the daughter of T. T is the wife of D. R is ____ of D.
Fill in the given blank.

R, F का भाई है। F, T की पुत्री है। T, D की पत्नी है। R, D का _____ है।
दिए गए रिक्त स्थान की पूर्ति कीजिए।

(1) Father / पिता

(2) Father's Brother / पिता का भाई

(3) **Son / पुत्र ✔**

(4) Brother / भाई

Q.45 In a certain code language, A @ B means 'A is the daughter of B'
A # B means 'A is the wife of B'
A ≠ B means 'A is the father of B'
A + B means 'A is the mother of B'
Based on the above, how is F related to V if 'F @ G # S ≠ T + V'?

एक निश्चित कूट भाषा में, A @ B का अर्थ है 'A, B की पुत्री है'
A # B का अर्थ है 'A, B की पत्नी है'
A ≠ B का अर्थ है 'A, B का पिता है'
A + B का अर्थ है 'A, B की माता है'
उपर्युक्त के आधार पर, यदि 'F @ G # S ≠ T + V' है, तो F का V से क्या संबंध है?

(1) Sister / बहन
(2) **Mother's sister / माता की बहन ✔**
(3) Wife's sister / पत्नी की बहन
(4) Father's sister / पिता की बहन

Q.46 K, L, M, P, S, T and U are sitting in a row facing north.
Only two people sit to the left of M. Only three people sit between M and U. Only one person sits between U and S. L sits to the immediate left of K. T is not an immediate neighbor of U. How many people sit to the right of P?

K, L, M, P, S, T और U उत्तर की ओर मुख करके एक पंक्ति में बैठे हैं।
M के बाईं ओर केवल दो व्यक्ति बैठे हैं। M और U के बीच केवल तीन व्यक्ति बैठे हैं। U और S के बीच केवल एक व्यक्ति बैठा है। L, K के ठीक बाईं ओर बैठा है। T, U का निकटतम पड़ोसी नहीं है। P के दाईं ओर कितने व्यक्ति बैठे हैं?

(1) Three / तीन
(2) Four / चार
(3) Two / दो
(4) **One / एक ✔**

Q.47 The position(s) of how many letters will remain unchanged if each of the letters in the word HANDIWORKS is arranged in the English alphabetical order?

यदि शब्द HANDIWORKS के प्रत्येक अक्षर को अंग्रेज़ी वर्णमाला क्रम में व्यवस्थित किया जाए, तो कितने अक्षरों का/के स्थान अपरिवर्तित रहेगा/रहेंगे?

(1) Zero / शून्य
(2) **Two / दो ✔**
(3) One / एक
(4) Three / तीन

QuickSarkari.com | WhatsApp Channel | Telegram: t.me/quick_sarkari

Q.48 In a certain code, 'movie star acting' is coded as 'tv qu lm'
'movie show threatre' is coded as 'nh sr tv'
'screen star show' is coded as 'qu xi sr'
(all the codes are two-letter coded only)
What does the code 'tv' stand for?

एक निश्चित कूट में, 'movie star acting' को 'tv qu lm' के रूप में कूटबद्ध किया जाता है 'movie show threatre' को 'nh sr tv' के रूप में कूटबद्ध किया जाता है 'screen star show' को 'qu xi sr' के रूप में कूटबद्ध किया जाता है (सभी कूट केवल दो अक्षर वाले कूट हैं)
कूट 'tv' का अर्थ क्या है?

(1) movie ✔
(2) acting
(3) show
(4) star

Q.49 Which of the following letter-clusters should replace # and % so that the pattern and relationship followed between the letter-cluster pair on the left side of :: is the same as that on the right side of ::?
: OPL :: PQM : %

निम्नलिखित में से कौन-से अक्षर-समूह # और % को प्रतिस्थापित करें ताकि :: के बाईं ओर के अक्षर-समूह युग्म के बीच अनुसरण किया गया पैटर्न और संबंध वही हो जो :: के दाईं ओर है?
: OPL :: PQM : %

(1) # = KLH, % = TUQ ✔
(2) # = MKH, % = TMK
(3) # = LIH, % = TKJ
(4) # = KOI, % = TLP

Q.50 Each letter in the word GUILDER is arranged in alphabetical order. How many letters are there in the English alphabetical order between the letter which is second from the left and the one which is first from the right in the new letter cluster thus formed?

शब्द GUILDER के प्रत्येक अक्षर को वर्णमाला क्रम में व्यवस्थित किया जाता है। इस प्रकार बने नए अक्षर-समूह में बाएँ से दूसरे अक्षर और दाएँ से पहले अक्षर के बीच अंग्रेज़ी वर्णमाला क्रम में कितने अक्षर हैं?

(1) 16
(2) 18
(3) 15 ✔
(4) 14

Q.51 Seven boxes—L, M, N, O, P, Q, and R—are kept one over the other, but not necessarily in the same order. Q is kept second from the bottom. Only two boxes are kept between Q and P. N is kept immediately above O. M is kept immediately below L. Only one box is kept between P and M. Which box is kept fourth from the top?

सात बक्से—L, M, N, O, P, Q और R—एक के ऊपर एक रखे गए हैं, परंतु आवश्यक नहीं कि इसी क्रम में हों। Q को नीचे से दूसरे स्थान पर रखा गया है। Q और P के बीच केवल दो बक्से रखे गए हैं। N को O के ठीक ऊपर रखा गया है। M को L के ठीक नीचे रखा गया है। P और M के बीच केवल एक बक्सा रखा गया है। ऊपर से चौथे स्थान पर कौन-सा बक्सा रखा गया है?

(1) M
(2) L ✔
(3) N
(4) P

Q.52 Each of P, Q, R, S, T, U and V has an exam on a different day of a week starting from Monday and ending on Sunday of the same week.
R has exam on Friday. Only two people have their exam between P and R. U has exam immediately before S but not on Wednesday. V has exam on one of the days before T but after Q.
Who has exam on Thursday?

P, Q, R, S, T, U और V में से प्रत्येक की परीक्षा एक ही सप्ताह के सोमवार से शुरू होकर रविवार को समाप्त होने वाले सप्ताह के अलग-अलग दिन है।
R की परीक्षा शुक्रवार को है। P और R के बीच केवल दो व्यक्तियों की परीक्षा है। U की परीक्षा S से ठीक पहले है, परंतु बुधवार को नहीं। V की परीक्षा T से पहले के, परंतु Q के बाद के किसी एक दिन है।
गुरुवार को किसकी परीक्षा है?

(1) V
(2) U
(3) T ✔
(4) Q

Q.53 Refer to the following number, symbol series and answer the question. Counting to be done from left to right only.(All number are single digit only.)
(Left) 2 @ % 4 6 $ & 7 # 3 Ω & 1 8 * £ 5 9 (Right)
How many such symbols are there each of which is immediately preceded by a number and also immediately followed by another number?

निम्नलिखित संख्या, प्रतीक श्रृंखला को देखिए और प्रश्न का उत्तर दीजिए। गिनती केवल बाएँ से दाएँ की जानी है। (सभी संख्याएँ केवल एक अंक वाली हैं।)
(बाएँ) 2 @ % 4 6 $ & 7 # 3 Ω & 1 8 * £ 5 9 (दाएँ)
ऐसे कितने प्रतीक हैं, जिनमें से प्रत्येक के ठीक पहले एक संख्या है और ठीक बाद भी एक अन्य संख्या है?

(1) None / कोई नहीं
(2) More than two / दो से अधिक
(3) One / एक ✔
(4) Two / दो

Q.54 Gyalchen starts from Point A and drives 19 km towards East. He then takes a right turn, drives 20 km, turns right and drives 21 km. He then takes a right turn and drives 22 km. He takes a final right turn, drives 2 km and stops at Point P. How far (shortest distance) and towards which direction should he drive in order to reach Point A again? (All turns are 90-degree turns only unless specified.)

ग्यालचेन बिंदु A से चलना शुरू करता है और पूर्व की ओर 19 km गाड़ी चलाता है। फिर वह दाएँ मुड़ता है, 20 km गाड़ी चलाता है, दाएँ मुड़ता है और 21 km गाड़ी चलाता है। फिर वह दाएँ मुड़ता है और 22 km गाड़ी चलाता है। वह अंतिम बार दाएँ मुड़ता है, 2 km गाड़ी चलाता है और बिंदु P पर रुक जाता है। बिंदु A पर पुनः पहुँचने के लिए उसे कितनी दूरी (न्यूनतम दूरी) तक और किस दिशा में गाड़ी चलानी चाहिए? (जब तक निर्दिष्ट न किया जाए, सभी मोड़ केवल 90 डिग्री के मोड़ हैं।)

(1) 2 km to the South / दक्षिण की ओर 2 km ✔
(2) 3 km to the South / दक्षिण की ओर 3 km
(3) 4 km to the South / दक्षिण की ओर 4 km
(4) 1 km to the South / दक्षिण की ओर 1 km

QuickSarkari.com | WhatsApp Channel | Telegram: t.me/quick_sarkari

Q.55 Refer to the following letter, symbol series and answer the question.
(Left) E & Q # L T K $ M Y * R % W @ O ! J U ^ N * F & P # (Right)
If all the letters are dropped from the series, which of the following will be fifth from the right?

निम्नलिखित अक्षर, प्रतीक श्रृंखला को देखिए और प्रश्न का उत्तर दीजिए।
(बाएँ) E & Q # L T K $ M Y * R % W @ O ! J U ^ N * F & P # (दाएँ)
यदि श्रृंखला से सभी अक्षरों को हटा दिया जाए, तो निम्नलिखित में से कौन-सा दाएँ से पाँचवें स्थान पर होगा?

(1) ^
(2) ! ✔
(3) @
(4) %

Q.56 In the following triad, each group of letters is related to the subsequent one following a certain logic. Select from the given options, the one which follows the same logic.
PLAY - LPAY - PAYL FROM - RFOM - FOMR

निम्नलिखित त्रय में, अक्षरों का प्रत्येक समूह एक निश्चित तर्क का अनुसरण करते हुए अगले समूह से संबंधित है। दिए गए विकल्पों में से उसका चयन कीजिए, जो उसी तर्क का अनुसरण करता है।
PLAY - LPAY - PAYL FROM - RFOM - FOMR

(1) ROWS - ORWS - SOWR
(2) MILE - IMLE - MLEI ✔
(3) FOUR - OFUR - OURF
(4) PLUS - PULS - SULP

Q.57 B, C, N, V, X and Z live on six different floors of the same building. The lowermost floor in the building is numbered 1, the floor above it is numbered 2 and so on, till the topmost floor is numbered 6.
N lives on a floor which is a prime number. The product of floors on which N and X live is 8. Z lives immediately above C. The sum of floors on which X and V live is 7.
How many people live below V?

B, C, N, V, X और Z एक ही इमारत की छह अलग-अलग मंज़िलों पर रहते हैं। इमारत की सबसे निचली मंज़िल की संख्या 1 है, उसके ऊपर वाली मंज़िल की संख्या 2 है और इसी प्रकार आगे, सबसे ऊपरी मंज़िल की संख्या 6 है।
N एक ऐसी मंज़िल पर रहता है जो एक अभाज्य संख्या है। जिन मंज़िलों पर N और X रहते हैं, उनका गुणनफल 8 है। Z, C के ठीक ऊपर रहता है। जिन मंज़िलों पर X और V रहते हैं, उनका योग 7 है।
V के नीचे कितने व्यक्ति रहते हैं?

(1) 3
(2) 4
(3) 2 ✔
(4) 1

Q.58 Each of G, E, R, L, A, N and D has an exam on a different day of a week, starting from Monday and ending on Sunday of the same week. Only two people have exams before G. Only one person has exam after D. Only three people have exams between G and A. Only one person has exam between E and N. L has exam immediately before E. How many people have exams between R and E?

G, E, R, L, A, N और D में से प्रत्येक की परीक्षा एक ही सप्ताह के सोमवार से शुरू होकर रविवार को समाप्त होने वाले सप्ताह के अलग-अलग दिन है। G से पहले केवल दो व्यक्तियों की परीक्षा है। D के बाद केवल एक व्यक्ति की परीक्षा है। G और A के बीच केवल तीन व्यक्तियों की परीक्षा है। E और N के बीच केवल एक व्यक्ति की परीक्षा है। L की परीक्षा E से ठीक पहले है। R और E के बीच कितने व्यक्तियों की परीक्षा है?

(1) Four / चार
(2) One / एक
(3) Three / तीन
(4) Two / दो ✔

Q.59 Refer to the following letter, number, symbol series and answer the question. Counting to be done from left to right only. (All numbers are single-digit numbers only)
(Left) D & J # X X 7 4 R K 6 3 F E = U L 4 & * A G 9 G (Right)
How many such letters are there, each of which is immediately preceded by a symbol and also immediately followed by a number?

निम्नलिखित अक्षर, संख्या, प्रतीक श्रृंखला को देखिए और प्रश्न का उत्तर दीजिए। गिनती केवल बाएँ से दाएँ की जानी है। (सभी संख्याएँ केवल एक अंक वाली संख्याएँ हैं)
(बाएँ) D & J # X X 7 4 R K 6 3 F E = U L 4 & * A G 9 G (दाएँ)
ऐसे कितने अक्षर हैं, जिनमें से प्रत्येक के ठीक पहले एक प्रतीक है और ठीक बाद एक संख्या है?

(1) Two / दो
(2) Three / तीन
(3) One / एक
(4) None / कोई नहीं ✔

Q.60 This question is based on the following words.
MAP HEX COD RUM If in each of the words, each letter is changed to the letter immediately following it in the English alphabetical order, how many words thus formed will have no vowel?

यह प्रश्न निम्नलिखित शब्दों पर आधारित है।
MAP HEX COD RUM यदि प्रत्येक शब्द के प्रत्येक अक्षर को अंग्रेज़ी वर्णमाला क्रम में उसके ठीक बाद वाले अक्षर से बदल दिया जाए, तो इस प्रकार बने कितने शब्दों में कोई स्वर नहीं होगा?

(1) Two / दो ✔
(2) One / एक
(3) Zero / शून्य
(4) Three / तीन

Q.61 Which of the following letter-number clusters will replace the question mark (?) in the given series to make it logically complete?
BIK33, GNP50, LSU67, QXZ84, ?

दी गई श्रृंखला को तार्किक रूप से पूर्ण करने के लिए निम्नलिखित में से कौन-सा अक्षर-संख्या समूह प्रश्न चिह्न (?) के स्थान पर आएगा?
BIK33, GNP50, LSU67, QXZ84, ?

(1) VCE101 ✔
(2) UCE101
(3) VCU101
(4) VCF101

Q.62 If 'E' stands for '×', 'F' stands for '÷', 'G' stands for '–', and 'H' stands for '+', then which of the following equals 13?

यदि 'E' का अर्थ '×' है, 'F' का अर्थ '÷' है, 'G' का अर्थ '–' है और 'H' का अर्थ '+' है, तो निम्नलिखित में से कौन-सा 13 के बराबर है?

(1) 7 G 2 H 1 F 6 E 5

(2) 7 E 2 F 1 G 6 H 5 ✔

(3) 7 F 2 E 1 G 6 H 5

(4) 7 H 2 G 1 E 6 F 5

Q.63 Based on the English alphabetical order, three of the following four letter-clusters are alike in a certain way and thus form a group. Which is the letter-cluster that does NOT belong to that group?
(Note: The odd one out is not based on the number of consonants/vowels or their positions in the letter-cluster.)

अंग्रेज़ी वर्णमाला क्रम के आधार पर, निम्नलिखित चार अक्षर-समूहों में से तीन किसी निश्चित प्रकार से एकसमान हैं और इस प्रकार एक समूह बनाते हैं। वह अक्षर-समूह कौन-सा है जो उस समूह से संबंधित नहीं है?
(नोट: असंगत अक्षर-समूह, उस अक्षर-समूह में व्यंजनों/स्वरों की संख्या या उनके स्थान पर आधारित नहीं है।)

(1) KHE

(2) SPN ✔

(3) WTQ

(4) BYV

Q.64 Select the set in which the numbers are related in the same way as are the numbers of the following sets.
(NOTE: Operations should be performed on the whole numbers, without breaking down the numbers into their constituent digits. E.g. 13 – Operations on 13 such as adding/subtracting/multiplying to 13 can be performed. Breaking down 13 into 1 and 3 and then performing mathematical operations on 1 and 3 is not allowed.)
(267, 216, 165)
(315, 264, 213)

उस समुच्चय का चयन कीजिए जिसमें संख्याएँ उसी प्रकार संबंधित हैं जिस प्रकार निम्नलिखित समुच्चयों की संख्याएँ संबंधित हैं।
(नोट: संख्याओं को उसके घटक अंकों में तोड़े बिना, संक्रियाएँ पूर्ण संख्याओं पर की जानी चाहिए। उदाहरण के लिए 13 – 13 पर संक्रियाएँ जैसे 13 में जोड़ना/घटाना/गुणा करना आदि किया जा सकता है। 13 को 1 और 3 में तोड़ना और फिर 1 और 3 पर गणितीय संक्रियाएँ करने की अनुमति नहीं है।)
(267, 216, 165)
(315, 264, 213)

(1) (223, 172, 121) ✔

(2) (242, 181, 120)

(3) (298, 247, 176)

(4) (336, 275, 224)

Q.65 Select the correct mirror image of the given figure when the mirror is placed at MN as shown below.

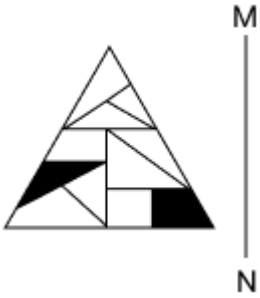

दी गई आकृति के सही दर्पण प्रतिबिंब का चयन कीजिए, जब दर्पण को नीचे दर्शाए अनुसार MN पर रखा गया हो।

(1) 

(2) 
✔

(3) 

(4) 

QuickSarkari

Q.66 If the water source is placed along X-Y, as shown in the figure, which of the given options will be the water reflection of the given figure.

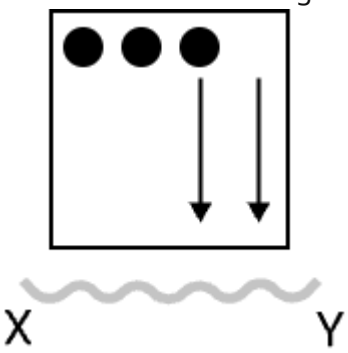

यदि जल स्रोत को आकृति में दर्शाए अनुसार X-Y के अनुदिश रखा जाए, तो दिए गए विकल्पों में से कौन-सा दी गई आकृति का जल प्रतिबिंब होगा?

(1) 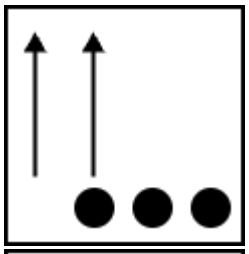

(2) 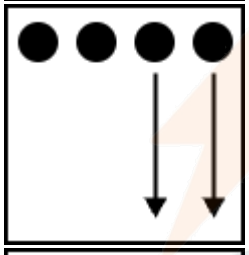

(3) 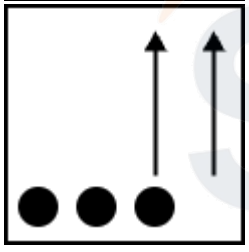

✔

(4) 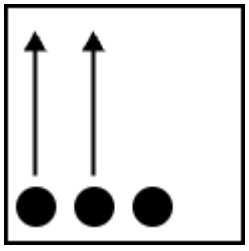

QuickSarkari.com | WhatsApp Channel | Telegram: t.me/quick_sarkari

Q.67 In this question, a question is followed by two statements numbered (I) and (II). You have to decide whether the data provided in the statements are sufficient to answer the question. Read both the statements and decide the appropriate answer.
Among 5 trees, L, M, N, T and V each having a different height, which tree is the shortest?
(I) M is shorter than T but taller than L
(II) M is shorter than N. V is taller than L

इस प्रश्न में, एक प्रश्न के बाद दो कथन (I) और (II) दिए गए हैं। आपको यह निर्णय करना है कि कथनों में दिए गए आँकड़े प्रश्न का उत्तर देने के लिए पर्याप्त हैं या नहीं। दोनों कथनों को पढ़िए और उपयुक्त उत्तर का निर्णय कीजिए।
5 पेड़ों, L, M, N, T और V में, जिनमें से प्रत्येक की ऊँचाई अलग-अलग है, कौन-सा पेड़ सबसे छोटा है?
(I) M, T से छोटा है परंतु L से लंबा है
(II) M, N से छोटा है। V, L से लंबा है

(1) Data in Statement I alone is sufficient to answer the question while data in statement II is not / केवल कथन I के आँकड़े प्रश्न का उत्तर देने के लिए पर्याप्त हैं, जबकि कथन II के आँकड़े पर्याप्त नहीं हैं

(2) Both statements I and II together (and not statement I alone or statement II alone) are sufficient to answer the question. / कथन I और II दोनों एक साथ (न कि अकेले कथन I या अकेले कथन II) प्रश्न का उत्तर देने के लिए पर्याप्त हैं। ✔

(3) Data in Statement II alone is sufficient to answer the question while data in statement I is not / केवल कथन II के आँकड़े प्रश्न का उत्तर देने के लिए पर्याप्त हैं, जबकि कथन I के आँकड़े पर्याप्त नहीं हैं

(4) Both statements I and II together are NOT sufficient to answer the question / कथन I और II दोनों एक साथ भी प्रश्न का उत्तर देने के लिए पर्याप्त नहीं हैं

QuickSarkari.com | WhatsApp Channel | Telegram: t.me/quick_sarkari

Q.68 Select the Venn diagram that best illustrates the relationship between the following classes.
Women, Sister, Painter

उस वेन आरेख का चयन कीजिए जो निम्नलिखित वर्गों के बीच संबंध को सर्वोत्तम रूप से दर्शाता है।
महिलाएँ, बहन, चित्रकार

(1) 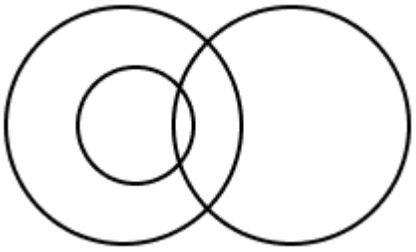
✔

(2) 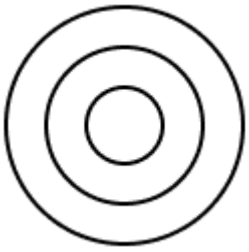

(3) 

(4) 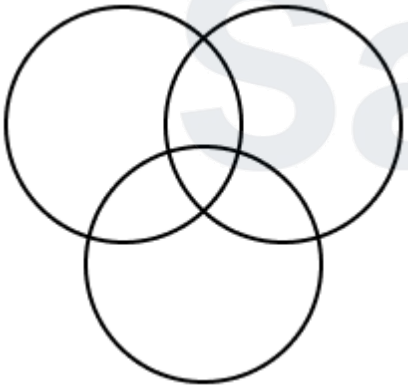

Q.69 What should come in place of '?' in the given series?
12, 18, 27, 39, ?, 72

दी गई श्रृंखला में '?' के स्थान पर क्या आना चाहिए?
12, 18, 27, 39, ?, 72

(1) 57
(2) **54** ✔
(3) 52
(4) 56

Q.70 What should come in place of the question mark (?) in the given series?
88 94 103 115 130 ?
दी गई श्रृंखला में प्रश्न चिह्न (?) के स्थान पर क्या आना चाहिए?
88 94 103 115 130 ?

(1) 148 ✔
(2) 147
(3) 150
(4) 149

Q.71 Based on the English alphabetical order, three of the following four letter-cluster pairs are alike in a certain way and thus form a group. Which is the one that does not belong to that group?
(Note: The odd one out is not based on the number of consonants/vowels or their position in the letter-cluster.)
अंग्रेज़ी वर्णमाला क्रम के आधार पर, निम्नलिखित चार अक्षर-समूह युग्मों में से तीन किसी निश्चित प्रकार से एकसमान हैं और इस प्रकार एक समूह बनाते हैं। वह कौन-सा युग्म है जो उस समूह से संबंधित नहीं है?
(नोट: असंगत युग्म, उस अक्षर-समूह में व्यंजनों/स्वरों की संख्या या उनके स्थान पर आधारित नहीं है।)

(1) OV – GP ✔
(2) DK – WE
(3) SZ – LT
(4) QX – JR

Q.72 If 1 is added to each odd digit and 1 is subtracted from each even digit in the number 9348576, then how many digits will appear more than once in the new number thus formed?
यदि संख्या 9348576 में प्रत्येक विषम अंक में 1 जोड़ दिया जाए और प्रत्येक सम अंक में से 1 घटा दिया जाए, तो इस प्रकार बनी नई संख्या में कितने अंक एक से अधिक बार आएँगे?

(1) None / कोई नहीं ✔
(2) Two / दो
(3) One / एक
(4) Three / तीन

Q.73 What should come in place of the question mark (?) in the given series?
67 68 78 79 89 90 ?
दी गई श्रृंखला में प्रश्न चिह्न (?) के स्थान पर क्या आना चाहिए?
67 68 78 79 89 90 ?

(1) 101
(2) 100 ✔
(3) 91
(4) 110

Q.74 Select the set in which the numbers are related in the same way as are the numbers of the following sets.
(NOTE : Operations should be performed on the whole numbers, without breaking down the numbers into its constituent digits. E.g. 13 – Operations on 13 such as adding / subtracting /multiplying etc. to 13 can be performed. Breaking down 13 into 1 and 3 and then performing mathematical operations on 1 and 3 is not allowed)
(18,6,321)
(24,5,357)

उस समुच्चय का चयन कीजिए जिसमें संख्याएँ उसी प्रकार संबंधित हैं जिस प्रकार निम्नलिखित समुच्चयों की संख्याएँ संबंधित हैं।
(नोट: संख्याओं को उसके घटक अंकों में तोड़े बिना, संक्रियाएँ पूर्ण संख्याओं पर की जानी चाहिए। उदाहरण के लिए 13 – 13 पर संक्रियाएँ जैसे 13 में जोड़ना / घटाना / गुणा करना आदि किया जा सकता है। 13 को 1 और 3 में तोड़ना और फिर 1 और 3 पर गणितीय संक्रियाएँ करने की अनुमति नहीं है)
(18,6,321)
(24,5,357)

(1) (21,7,439)
(2) (26,4,309) ✔
(3) (32,3,284)
(4) (41,3,372)

Q.75 Select the set in which the numbers are related in the same way as are the numbers of the following sets.
(NOTE : Operations should be performed on the whole numbers, without breaking down the numbers into its constituent digits. E.g. 13 – Operations on 13 such as adding / subtracting /multiplying etc. to 13 can be performed. Breaking down 13 into 1 and 3 and then performing mathematical operations on 1 and 3 is not allowed.)
(6,23,35)
(25,20,70)

उस समुच्चय का चयन कीजिए जिसमें संख्याएँ उसी प्रकार संबंधित हैं जिस प्रकार निम्नलिखित समुच्चयों की संख्याएँ संबंधित हैं।
(नोट: संख्याओं को उसके घटक अंकों में तोड़े बिना, संक्रियाएँ पूर्ण संख्याओं पर की जानी चाहिए। उदाहरण के लिए 13 – 13 पर संक्रियाएँ जैसे 13 में जोड़ना / घटाना / गुणा करना आदि किया जा सकता है। 13 को 1 और 3 में तोड़ना और फिर 1 और 3 पर गणितीय संक्रियाएँ करने की अनुमति नहीं है।)
(6,23,35)
(25,20,70)

(1) (10,20,30)
(2) (17,19,53) ✔
(3) (24,6,56)
(4) (20,5,40)

Q.76 Read the given statements and conclusions carefully. Assuming that the information given in the statements is true, even if it appears to be at variance with commonly known facts, decide which of the given conclusions logically follow(s) from the statements.
Statements:
All doors are windows.
All windows are curtains.
No curtain is a bed.
Conclusions:
(I): No door is a bed.
(II): No window is a bed.

दिए गए कथनों और निष्कर्षों को ध्यानपूर्वक पढ़िए। यह मानते हुए कि कथनों में दी गई जानकारी सत्य है, भले ही वह सामान्य रूप से ज्ञात तथ्यों से भिन्न प्रतीत होती हो, निर्णय कीजिए कि दिए गए निष्कर्षों में से कौन-सा/से निष्कर्ष कथनों का तार्किक रूप से अनुसरण करता है/करते हैं।
कथन:
सभी दरवाज़े, खिड़कियाँ हैं।
सभी खिड़कियाँ, पर्दे हैं।
कोई पर्दा, बिस्तर नहीं है।
निष्कर्ष:
(I): कोई दरवाज़ा, बिस्तर नहीं है।
(II): कोई खिड़की, बिस्तर नहीं है।

(1) Only conclusion (II) follows. / केवल निष्कर्ष (II) अनुसरण करता है।
(2) Neither conclusion (I) nor (II) follows. / न तो निष्कर्ष (I) और न ही (II) अनुसरण करता है।
(3) Both conclusions (I) and (II) follow. / निष्कर्ष (I) और (II) दोनों अनुसरण करते हैं। ✔
(4) Only conclusion (I) follows. / केवल निष्कर्ष (I) अनुसरण करता है।

QuickSarkari.com | WhatsApp Channel | Telegram: t.me/quick_sarkari

Q.77 Select the option figure in which the given figure is embedded as its part (rotation is NOT allowed).

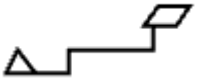

उस विकल्प आकृति का चयन कीजिए जिसमें दी गई आकृति उसके भाग के रूप में निहित है (घुमाने की अनुमति नहीं है)।

(1) 

(2) 

(3) 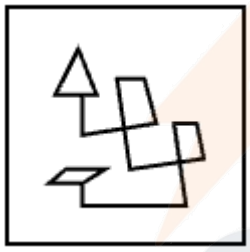

(4) 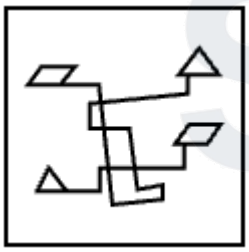

✔

Quick Sarkari

Q.78 Select the Venn diagram that best illustrates the relationship between the following classes.
Apple, Device, Fruit

उस वेन आरेख का चयन कीजिए जो निम्नलिखित वर्गों के बीच संबंध को सर्वोत्तम रूप से दर्शाता है।
सेब, उपकरण, फल

(1)

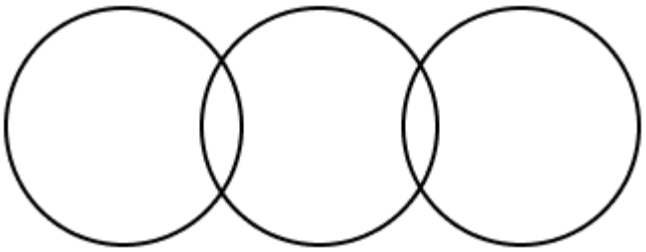

(2)



(3)

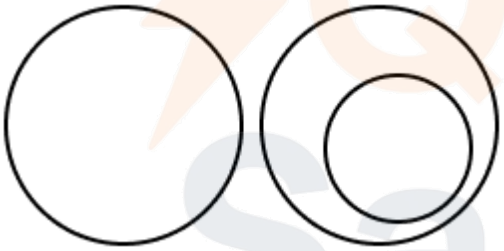

✔

(4)



Q.79 If 'P' stands for '×', 'Q' stands for '÷', 'R' stands for '-' and 'S' stands for '+', what will come in place of the question mark '?' in the following equation?
22 P 2 Q 11 S 9 R 4 = ?

यदि 'P' का अर्थ '×' है, 'Q' का अर्थ '÷' है, 'R' का अर्थ '-' है और 'S' का अर्थ '+' है, तो निम्नलिखित समीकरण में प्रश्न चिह्न '?' के स्थान पर क्या आएगा?
22 P 2 Q 11 S 9 R 4 = ?

(1) 5
(2) 11
(3) 7
(4) 9 ✔

QuickSarkari.com | WhatsApp Channel | Telegram: t.me/quick_sarkari

Q.80 A question is followed by two statements numbered (I) and (II). You have to decide whether the data provided in the statements is sufficient to answer the question. Read both the statements and decide the appropriate answer.
Question: Af, Bj, Ch, Dg and Eq are sitting around a circular table, facing the centre. Who sits second to the right of Dg?
Statements:
(I) Bj sits to the immediate right of Af. Dg sits third to the left of Af.
(II) Ch sits second to the left of Af. Bj sits second to the left of Ch.

एक प्रश्न के बाद दो कथन (I) और (II) दिए गए हैं। आपको यह निर्णय करना है कि कथनों में दिए गए आँकड़े प्रश्न का उत्तर देने के लिए पर्याप्त हैं या नहीं। दोनों कथनों को पढ़िए और उपयुक्त उत्तर का निर्णय कीजिए।
प्रश्न: Af, Bj, Ch, Dg और Eq एक वृत्ताकार मेज़ के चारों ओर केंद्र की ओर मुख करके बैठे हैं। Dg के दाएँ से दूसरे स्थान पर कौन बैठा है?
कथन:
(I) Bj, Af के ठीक दाईं ओर बैठा है। Dg, Af के बाएँ से तीसरे स्थान पर बैठा है।
(II) Ch, Af के बाएँ से दूसरे स्थान पर बैठा है। Bj, Ch के बाएँ से दूसरे स्थान पर बैठा है।

(1) Data in Statement I alone is sufficient to answer the question, while data in statement II is not. / केवल कथन I के आँकड़े प्रश्न का उत्तर देने के लिए पर्याप्त हैं, जबकि कथन II के आँकड़े पर्याप्त नहीं हैं।
(2) Both statements I and II together (and not statement I alone or statement II alone) are sufficient to answer the question. / कथन I और II दोनों एक साथ (न कि अकेले कथन I या अकेले कथन II) प्रश्न का उत्तर देने के लिए पर्याप्त हैं। ✔
(3) Data in Statement II alone is sufficient to answer the question, while data in statement I is not. / केवल कथन II के आँकड़े प्रश्न का उत्तर देने के लिए पर्याप्त हैं, जबकि कथन I के आँकड़े पर्याप्त नहीं हैं।
(4) Data in statements I and II together are not sufficient to answer the question. / कथन I और II दोनों के आँकड़े एक साथ भी प्रश्न का उत्तर देने के लिए पर्याप्त नहीं हैं।

Arithmetical and Numerical Ability

Q.81 The difference between the compound interest, compounded annually and the simple interest on a sum of ₹S for 3 years at 10% per annum is ₹31. The value of S is:

₹S की राशि पर 3 वर्षों के लिए 10% वार्षिक दर से वार्षिक रूप से संयोजित चक्रवृद्धि ब्याज और साधारण ब्याज का अंतर ₹31 है। S का मान है:

(1) 1500
(2) 1200
(3) 1400
(4) 1000 ✔

Q.82 A person who spends 20% of his monthly income is able to save ₹4,960 per month. His monthly expenses (in ₹) are:

एक व्यक्ति, जो अपनी मासिक आय का 20% खर्च करता है, प्रति माह ₹4,960 की बचत कर पाता है। उसका मासिक व्यय (₹ में) है:

(1) 1,240 ✔
(2) 1,245
(3) 1,235
(4) 1,225

Q.83 In what ratio must a grocer mix two varieties of rice worth ₹55 per kg and ₹70 per kg so that if he sells the mixture at ₹91 per kg he may gain 40%?

एक पंसारी को ₹55 प्रति kg और ₹70 प्रति kg मूल्य वाली चावल की दो किस्मों को किस अनुपात में मिलाना चाहिए ताकि मिश्रण को ₹91 प्रति kg पर बेचने पर उसे 40% का लाभ हो?

(1) 1:2 ✔

(2) 4:5

(3) 2:3

(4) 3:7

Q.84 Two equal glasses of the same type are, respectively, one-fourth and one-fifth full of milk. They are then filled up with water, and the contents are mixed in a pot. What is the ratio of milk to water in the pot?

एक ही प्रकार के दो समान गिलास क्रमशः एक-चौथाई और एक-पाँचवाँ भाग दूध से भरे हैं। फिर उन्हें पानी से पूरा भर दिया जाता है और उनकी सामग्री को एक बर्तन में मिला दिया जाता है। बर्तन में दूध और पानी का अनुपात क्या है?

(1) 9:31 ✔

(2) 9:29

(3) 11:31

(4) 9:28

Q.85 The following table shows the price (in ₹ per 100 kg) of different items during different years. Answer the question based on this table.

| 1990 | 1995 | 2000 | 2005 | 2010

Rice | 800 | 1150 | 1680 | 2400 | 3500

Wheat | 450 | 700 | 1200 | 1650 | 2100

Pulses | 2000 | 2700 | 3650 | 4600 | 6400

Sugar | 1500 | 2200 | 3000 | 3800 | 4500

Groundnut | 1200 | 1700 | 2450 | 3500 | 4200

Oil | 4200 | 5500 | 6400 | 800 | 11000 What was the increase in the price (in percentage) of rice from the year 1990 to the year 2000?

निम्नलिखित तालिका विभिन्न वर्षों के दौरान विभिन्न वस्तुओं का मूल्य (₹ प्रति 100 kg में) दर्शाती है। इस तालिका के आधार पर प्रश्न का उत्तर दीजिए।

| 1990 | 1995 | 2000 | 2005 | 2010

चावल | 800 | 1150 | 1680 | 2400 | 3500

गेहूँ | 450 | 700 | 1200 | 1650 | 2100

दालें | 2000 | 2700 | 3650 | 4600 | 6400

चीनी | 1500 | 2200 | 3000 | 3800 | 4500

मूँगफली | 1200 | 1700 | 2450 | 3500 | 4200

तेल | 4200 | 5500 | 6400 | 800 | 11000 वर्ष 1990 से वर्ष 2000 तक चावल के मूल्य में कितनी वृद्धि (प्रतिशत में) हुई?

(1) 114%

(2) 110% ✔

(3) 104%

(4) 108%

Q.86 What will be the unit digit of the cube of 134257?

134257 के घन का इकाई अंक क्या होगा?

(1) 6

(2) 9

(3) 3 ✔

(4) 2

Q.87 Find the annual rate of interest if a sum of ₹12,000 amounts to ₹17,569.2 in 2 years, when the interest is compounded half-yearly.

यदि ₹12,000 की राशि 2 वर्षों में ₹17,569.2 हो जाती है, जब ब्याज अर्धवार्षिक रूप से संयोजित होता है, तो वार्षिक ब्याज दर ज्ञात कीजिए।

(1) 19%

(2) 18%

(3) 21%

(4) 20% ✔

Q.88

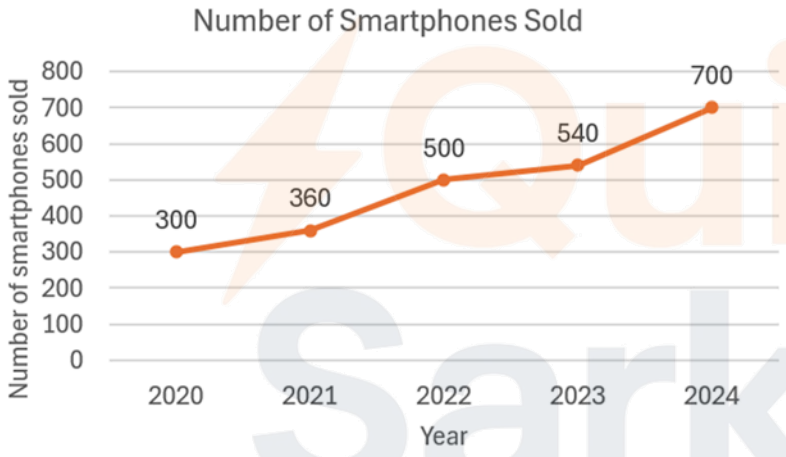

The above line graph shows the number of mobiles sold in different years. The total number of smartphones sold in 2021 and 2023 together is what percent of the total number of smartphones sold in 2020, 2022, and 2024 together?

उपर्युक्त रेखा ग्राफ विभिन्न वर्षों में बेचे गए मोबाइलों की संख्या दर्शाता है। 2021 और 2023 में मिलाकर बेचे गए स्मार्टफोनों की कुल संख्या, 2020, 2022 और 2024 में मिलाकर बेचे गए स्मार्टफोनों की कुल संख्या का कितना प्रतिशत है?

(1) 60% ✔

(2) 50%

(3) 75%

(4) 70%

Q.89 Neha spends 71% of his monthly income. If he saves ₹6670 every month. Find his monthly income.

नेहा अपनी मासिक आय का 71% खर्च करती है। यदि वह प्रत्येक माह ₹6670 की बचत करती है, तो उसकी मासिक आय ज्ञात कीजिए।

(1) ₹23,000 ✔

(2) ₹24,150

(3) ₹23,470

(4) ₹23,020

Q.90 In a class of 30 students, the overall average marks is 60. The average marks of 10 boys in the class is 55. If the remaining students are girls, then the average marks of the girls is how much more than the average marks of the boys?

30 विद्यार्थियों की एक कक्षा में, कुल औसत अंक 60 हैं। कक्षा के 10 लड़कों के औसत अंक 55 हैं। यदि शेष विद्यार्थी लड़कियाँ हैं, तो लड़कियों के औसत अंक, लड़कों के औसत अंकों से कितने अधिक हैं?

(1) 6.5
(2) **7.5 ✔**
(3) 8.5
(4) 5.5

Q.91 The average weight of three men A, B and C is 84 kg. A fourth man D joins them and the average of the four becomes 80 kg. Later A is replaced by a man E whose weight is 3 kg more than that of D. After this replacement, the average weight of B, C, D and E is 74 kg. Find the weight of A.

तीन व्यक्तियों A, B और C का औसत भार 84 kg है। एक चौथा व्यक्ति D उनके साथ जुड़ता है और चारों का औसत 80 kg हो जाता है। बाद में A को एक व्यक्ति E से प्रतिस्थापित कर दिया जाता है, जिसका भार D के भार से 3 kg अधिक है। इस प्रतिस्थापन के बाद, B, C, D और E का औसत भार 74 kg है। A का भार ज्ञात कीजिए।

(1) 84 kg
(2) 78 kg
(3) 87 kg
(4) **95 kg ✔**

Q.92 David borrowed a sum of ₹30,000 at a certain rate of simple interest for 4 years. If he paid an interest of ₹6,000 at the end of the period at x% per annum rate of interest, the value of x is:

डेविड ने साधारण ब्याज की एक निश्चित दर पर 4 वर्षों के लिए ₹30,000 की राशि उधार ली। यदि उसने x% वार्षिक ब्याज दर पर अवधि के अंत में ₹6,000 का ब्याज चुकाया, तो x का मान है:

(1) 4
(2) **5 ✔**
(3) 6
(4) 7

Q.93 A number 8967X52 is divisible by 6, then the least positive value of X+5 is:

एक संख्या 8967X52, 6 से विभाज्य है, तो X+5 का न्यूनतम धनात्मक मान है:

(1) **7 ✔**
(2) 5
(3) 2
(4) 6

Q.94 The population of a city is 2,20,00,000. After 2 years, it becomes 2,66,20,000. Assuming the population grows at a constant annual rate, find the annual growth rate.

एक शहर की जनसंख्या 2,20,00,000 है। 2 वर्षों के बाद, यह 2,66,20,000 हो जाती है। यह मानते हुए कि जनसंख्या एक स्थिर वार्षिक दर से बढ़ती है, वार्षिक वृद्धि दर ज्ञात कीजिए।

(1) 5%
(2) 2%
(3) 12%
(4) **10% ✔**

Q.95 Simplify: $(6^4 \times 6^4 \times 5^5)/(6^1 \times 6^2 \times 5^3)$

सरल कीजिए: $(6^4 \times 6^4 \times 5^5)/(6^1 \times 6^2 \times 5^3)$

(1) 194400 ✔

(2) 194407

(3) 194410

(4) 194404

Q.96 The product of two numbers is 9747 and their H.C.F is 57. Find their L.C.M.

दो संख्याओं का गुणनफल 9747 है और उनका म.स.प. (H.C.F) 57 है। उनका ल.स.प. (L.C.M) ज्ञात कीजिए।

(1) 226

(2) 230

(3) 171 ✔

(4) 233

Q.97 A container has 50 litres of milk. 10 litres of milk is removed and replaced with water. This process is repeated once again. What is the quantity of milk left in the container?

एक पात्र में 50 लीटर दूध है। 10 लीटर दूध निकालकर उसके स्थान पर पानी मिला दिया जाता है। यह प्रक्रिया एक बार और दोहराई जाती है। पात्र में शेष दूध की मात्रा कितनी है?

(1) 36 litres / 36 लीटर

(2) 38 litres / 38 लीटर

(3) 34 litres / 34 लीटर

(4) 32 litres / 32 लीटर ✔

Q.98 At a simple interest rate of 10% per annum, a certain sum grows to ₹A after 5 years and to ₹B after 8 years. Given that the difference between these amounts is ₹36,000 (i.e., B − A = ₹36,000), find the original principal amount.

10% वार्षिक साधारण ब्याज दर पर, एक निश्चित राशि 5 वर्षों के बाद ₹A और 8 वर्षों के बाद ₹B हो जाती है। यह दिया गया है कि इन राशियों का अंतर ₹36,000 है (अर्थात् B − A = ₹36,000), मूल राशि ज्ञात कीजिए।

(1) ₹1,05,000

(2) ₹1,20,000 ✔

(3) ₹1,25,000

(4) ₹1,30,000

Q.99 In a division sum, the divisor is 3 times the quotient and 6 times the remainder. If the remainder is 17, what is the dividend?

एक भाग के प्रश्न में, भाजक भागफल का 3 गुना और शेषफल का 6 गुना है। यदि शेषफल 17 है, तो भाज्य क्या है?

(1) 3490

(2) 3485 ✔

(3) 3480

(4) 3482

Q.100 The pie chart below represents the percentage distribution of total sales revenue generated by a consumer goods company from five regions — North, South, East, West, and Central — during FY 2024.

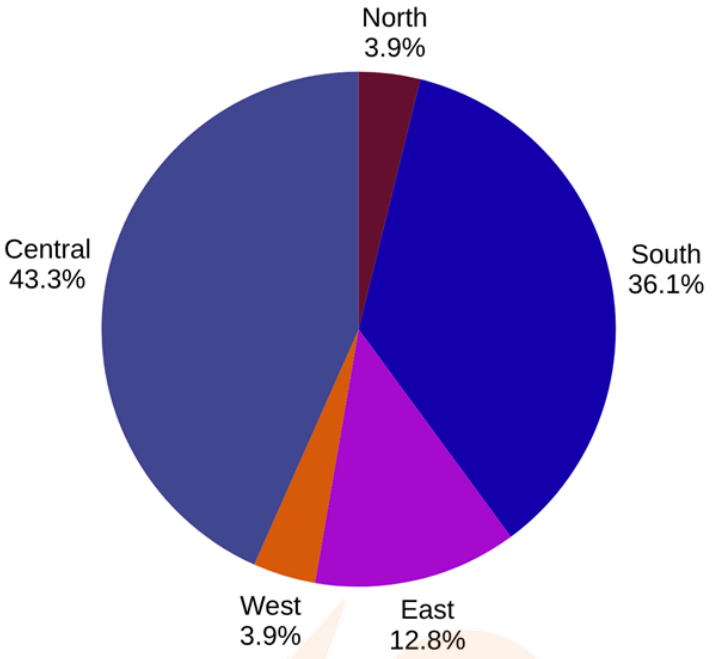

If the company's total sales revenue for FY 2024 is ₹306 crore, determine the sales (in ₹ crore) generated by the South region, rounding off the result to the nearest whole number.

नीचे दिया गया पाई चार्ट वित्त वर्ष 2024 के दौरान पाँच क्षेत्रों — उत्तर, दक्षिण, पूर्व, पश्चिम और मध्य — से एक उपभोक्ता वस्तु कंपनी द्वारा अर्जित कुल बिक्री राजस्व का प्रतिशत वितरण दर्शाता है।

यदि वित्त वर्ष 2024 के लिए कंपनी का कुल बिक्री राजस्व ₹306 करोड़ है, तो दक्षिण क्षेत्र द्वारा अर्जित बिक्री (₹ करोड़ में) ज्ञात कीजिए, परिणाम को निकटतम पूर्ण संख्या तक पूर्णांकित कीजिए।

(1) 200

(2) **110** ✔

(3) 100

(4) 115

Q.101 If 8 pumps can fill a tank in 12 hours, how many pumps are required to fill the same tank in 6 hours?

यदि 8 पंप एक टंकी को 12 घंटे में भर सकते हैं, तो उसी टंकी को 6 घंटे में भरने के लिए कितने पंपों की आवश्यकता होगी?

(1) 15 pumps / 15 पंप

(2) 14 pumps / 14 पंप

(3) **16 pumps / 16 पंप** ✔

(4) 12 pumps / 12 पंप

Q.102 A, B and C alone can complete a piece of work in 5, 40 and 24 days, respectively. They started the work together, but A left after 3 days. In how many days was the whole work completed?

A, B और C अकेले-अकेले किसी कार्य को क्रमशः 5, 40 और 24 दिनों में पूरा कर सकते हैं। उन्होंने एक साथ कार्य शुरू किया, परंतु A ने 3 दिनों के बाद कार्य छोड़ दिया। पूरा कार्य कितने दिनों में पूरा हुआ?

(1) 7

(2) 4

(3) **6** ✔

(4) 3

QuickSarkari.com | WhatsApp Channel | Telegram: t.me/quick_sarkari

Q.103 Mr. Bharat bought an article for ₹5500. He sold it for a loss of 10% to Mr. Gopal and he sold it to a third person for a profit of 30%. Find the selling price of the article for Mr. Gopal.

श्री भरत ने एक वस्तु ₹5500 में खरीदी। उन्होंने इसे 10% की हानि पर श्री गोपाल को बेच दिया और श्री गोपाल ने इसे 30% के लाभ पर एक तीसरे व्यक्ति को बेच दिया। श्री गोपाल के लिए वस्तु का विक्रय मूल्य ज्ञात कीजिए।

(1) ₹5,950

(2) ₹6,225

(3) ₹6,435 ✔

(4) ₹7,400

Q.104 A solid right circular cone is surmounted on a solid hemisphere. The radius of the base of the cone and that of the hemisphere are both 2.5 cm. The height of the cone is 25 cm. The entire solid is melted and recast into three identical solid spheres. What is the radius of one sphere?

एक ठोस लंब वृत्तीय शंकु एक ठोस अर्धगोले पर अध्यारोपित है। शंकु के आधार की त्रिज्या और अर्धगोले की त्रिज्या दोनों 2.5 cm हैं। शंकु की ऊँचाई 25 cm है। संपूर्ण ठोस को पिघलाकर तीन समरूप ठोस गोलों में ढाला जाता है। एक गोले की त्रिज्या क्या है?

(1) 2.65 cm

(2) 2.25 cm

(3) 2.50 cm ✔

(4) 2.75 cm

Q.105 Arvind marked up the selling price of a house such that he gained 10% on his investment. If the house was ultimately sold for ₹60,52,200, what was the original cost price of the house?

अरविंद ने एक मकान का विक्रय मूल्य इस प्रकार अंकित किया कि उसे अपने निवेश पर 10% का लाभ हुआ। यदि मकान अंततः ₹60,52,200 में बेचा गया, तो मकान का मूल क्रय मूल्य क्या था?

(1) ₹55,02,000 ✔

(2) ₹55,02,200

(3) ₹56,02,040

(4) ₹56,02,000

Q.106 The sides of a triangle are in the ratio 3 : 4 : 5 and its perimeter is 96 cm. Find its area.

एक त्रिभुज की भुजाएँ 3 : 4 : 5 के अनुपात में हैं और इसका परिमाप 96 cm है। इसका क्षेत्रफल ज्ञात कीजिए।

(1) 394 cm^2

(2) 384 cm^2 ✔

(3) 342 cm^2

(4) 388 cm^2

Q.107 Find the area of a regular hexagon with a side length of 6 cm.

6 cm भुजा वाले एक सम षट्भुज का क्षेत्रफल ज्ञात कीजिए।

(1) $60\sqrt{3}$ cm^2

(2) $72\sqrt{3}$ cm^2

(3) $54\sqrt{3}$ cm^2 ✔

(4) $64\sqrt{3}$ cm^2

Q.108 What is the surface area of a sphere whose radius is 14 cm? (Use π = 22/7)

उस गोले का पृष्ठीय क्षेत्रफल क्या है जिसकी त्रिज्या 14 cm है? (π = 22/7)

(1) 2,264 cm^2

(2) 2,024 cm^2

(3) 2,224 cm^2

(4) **2,464 cm^2** ✔

Q.109 A and B complete a work in 33 days. If A alone can do it in 44 days, then B alone can do one-third of the same work in _____ days.

A और B एक कार्य को 33 दिनों में पूरा करते हैं। यदि A अकेले इसे 44 दिनों में कर सकता है, तो B अकेले उसी कार्य का एक-तिहाई भाग _____ दिनों में कर सकता है।

(1) 88

(2) 66

(3) 55

(4) **44** ✔

Q.110 A shopkeeper marks the price of a chair 40% above its cost price and then gives a discount of 15% on the marked price. If the cost price of the chair is ₹3800, find the selling price after discount.

एक दुकानदार एक कुर्सी का मूल्य उसके क्रय मूल्य से 40% अधिक अंकित करता है और फिर अंकित मूल्य पर 15% की छूट देता है। यदि कुर्सी का क्रय मूल्य ₹3800 है, तो छूट के बाद विक्रय मूल्य ज्ञात कीजिए।

(1) ₹5000

(2) ₹4200

(3) **₹4522** ✔

(4) ₹5320

Q.111 A cylindrical candle of radius 8 cm and height 28 cm is melted to form spherical balls of radius 4 cm each. Find the number of balls formed.

8 cm त्रिज्या और 28 cm ऊँचाई वाली एक बेलनाकार मोमबत्ती को पिघलाकर 4 cm त्रिज्या वाली गोलाकार गेंदें बनाई जाती हैं। बनी गेंदों की संख्या ज्ञात कीजिए।

(1) 20

(2) **21** ✔

(3) 18

(4) 24

Q.112 A refrigerator is marked at ₹61,000. If two refrigerators are purchased, the shopkeeper offers a X% discount on the second refrigerator. If the total amount paid for the purchase of two refrigerators is ₹1,07,360, find X.

एक रेफ्रिजरेटर का अंकित मूल्य ₹61,000 है। यदि दो रेफ्रिजरेटर खरीदे जाते हैं, तो दुकानदार दूसरे रेफ्रिजरेटर पर X% की छूट देता है। यदि दो रेफ्रिजरेटरों की खरीद के लिए भुगतान की गई कुल राशि ₹1,07,360 है, तो X ज्ञात कीजिए।

(1) **24** ✔

(2) 22

(3) 14

(4) 16

Q.113 A shopkeeper claims that he sells rock salt at ₹43 per kg, which is also the cost price of the salt. However, instead of giving 1 kg, he gives only 581 g. What is his profit percentage?

एक दुकानदार दावा करता है कि वह सेंधा नमक ₹43 प्रति kg पर बेचता है, जो नमक का क्रय मूल्य भी है। हालाँकि, 1 kg देने के बजाय, वह केवल 581 g देता है। उसका लाभ प्रतिशत क्या है?

(1) 200%

(2) 197%

(3) 199%

(4) 201%

Q.114 Subtracting 63% of X from X is the same as multiplying X by:

X में से X का 63% घटाना, X को किससे गुणा करने के समान है?

(1) 0.37 ✔

(2) 0.5

(3) 0.63

(4) 0.42

Q.115 Ajay and Bhanu start running simultaneously from the same point on a circular track measuring 360 m in circumference. Ajay runs at a speed of 6 m/s, while Bhanu runs at 8 m/s, both moving in the same direction. How long will it take for Bhanu to catch up with Ajay and meet him again on the track?

अजय और भानु 360 m परिधि वाले एक वृत्ताकार पथ पर एक ही बिंदु से एक साथ दौड़ना शुरू करते हैं। अजय 6 m/s की चाल से दौड़ता है, जबकि भानु 8 m/s की चाल से दौड़ता है, दोनों एक ही दिशा में चल रहे हैं। भानु को अजय तक पहुँचने और पथ पर उससे पुनः मिलने में कितना समय लगेगा?

(1) 3 minutes / 3 मिनट ✔

(2) 4 minutes / 4 मिनट

(3) 2 minutes / 2 मिनट

(4) 5 minutes / 5 मिनट

Q.116 Pipe A can fill a tank in 6 hours, whereas pipe B can fill the same tank in 12 hours. If both the pipes are opened together, then how long will it take to fill the tank?

पाइप A एक टंकी को 6 घंटे में भर सकता है, जबकि पाइप B उसी टंकी को 12 घंटे में भर सकता है। यदि दोनों पाइप एक साथ खोल दिए जाएँ, तो टंकी को भरने में कितना समय लगेगा?

(1) 5 hours / 5 घंटे

(2) 3 hours / 3 घंटे

(3) 4 hours / 4 घंटे ✔

(4) 5.5 hours / 5.5 घंटे

Q.117 If A's salary is 147% more than that of B, then how much percent is B's salary less than that of A? (Rounded off to two decimal places)

यदि A का वेतन B के वेतन से 147% अधिक है, तो B का वेतन A के वेतन से कितने प्रतिशत कम है? (दो दशमलव स्थानों तक पूर्णांकित)

(1) 62.25%

(2) 59.51% ✔

(3) 61.08%

(4) 62.55%

Q.118 A cuboid has length, breadth and height in the ratio 3:2:1. If its volume is 384 cm^3, find its surface area.

एक घनाभ की लंबाई, चौड़ाई और ऊँचाई 3:2:1 के अनुपात में हैं। यदि इसका आयतन 384 cm^3 है, तो इसका पृष्ठीय क्षेत्रफल ज्ञात कीजिए।

(1) 480 cm^2

(2) 288 cm^2

(3) **352 cm^2** ✔

(4) 416 cm^2

Q.119 In a school, Class X is divided into three sections: A, B, and C. The ratio of students in sections A and B is 1:3, and the ratio of students in sections B and C is 4:7. If the total number of students in Class X is 407, how many students are there in Section A?

एक विद्यालय में, कक्षा X को तीन वर्गों: A, B और C में विभाजित किया गया है। वर्ग A और B में विद्यार्थियों का अनुपात 1:3 है, और वर्ग B और C में विद्यार्थियों का अनुपात 4:7 है। यदि कक्षा X में विद्यार्थियों की कुल संख्या 407 है, तो वर्ग A में कितने विद्यार्थी हैं?

(1) 41

(2) 43

(3) 42

(4) **44** ✔

Q.120 A man walks to a viewpoint and returns to the starting point by his car and thus takes a total time of 9 hours 15 minutes. He would have gained 9 hours by driving both ways. How long would it have taken for him to walk both ways?

एक व्यक्ति पैदल चलकर एक दर्शनीय स्थल तक जाता है और अपनी कार से प्रारंभिक बिंदु पर लौटता है और इस प्रकार उसे कुल 9 घंटे 15 मिनट का समय लगता है। यदि वह दोनों ओर कार से जाता, तो उसके 9 घंटे बच जाते। दोनों ओर पैदल चलने में उसे कितना समय लगता?

(1) 17 hours 15 minutes / 17 घंटे 15 मिनट

(2) 19 hours 30 minutes / 19 घंटे 30 मिनट

(3) 18 hours 45 minutes / 18 घंटे 45 मिनट

(4) **18 hours 15 minutes / 18 घंटे 15 मिनट** ✔

Hindi Language and Comprehension

Q.121 निम्नलिखित विकल्पों में से उचित विशेषण का चयन कर वाक्य को पूर्ण करें- 'जयंत एक_____और अध्ययनशील प्रवक्ता है।'

(1) भंगुर

(2) रमणीय

(3) मुश्किल

(4) **जिज्ञासु** ✔

Q.122 निम्नलिखित वाक्य के रिक्त स्थान में उचित क्रिया-विशेषण शब्द का प्रयोग करें - 'मजदूर ने धूप में काम किया।'

(1) निकट

(2) बहुत

(3) **दिनभर** ✔

(4) पास

Q.123 वाक्य को शुद्ध क्रम में लगाएं।
1. संचार हो जाता है
2. प्रातःकाल में सूर्य का
3. उदय होते ही मानो संसार
4. में एक नई ऊर्जा का

(1) 2,3,1,4
(2) 2,3,4,1 ✔
(3) 1,2,3,4
(4) 2,4,3,1

Q.124 उपयुक्त कारक चिह्न से वाक्य पूर्ण कीजिए।
तालिबानियों ने पाकिस्तान _____ रौंद डाला।

(1) से
(2) की
(3) पर
(4) को ✔

Q.125 निम्नलिखित विकल्पों में से उचित विशेषण का चयन कर वाक्य को पूर्ण करें- '_____व्यक्ति प्रायः अवसर खो देता है।'

(1) हिम्मती
(2) विशिष्ट
(3) उदासीन ✔
(4) बहादुर

Q.126 उपयुक्त विशेषण शब्द से वाक्य पूर्ण कीजिए।
इस उद्योग ने _____ रुपये का मुनाफा कमाया।

(1) करोड़ों ✔
(2) थोड़ा
(3) लगभग
(4) सालों

Q.127 'शक्ति का उपासक' के लिए प्रयुक्त सार्थक शब्द कौन-सा है?

(1) शाक्त ✔
(2) शक्तिबोध
(3) शक्तिभक्त
(4) शक्तिवान

Q.128 मेरा माली विश्वासी और .....था ।
उपर्युक्त वाक्य में रिक्त स्थान की पूर्ति के लिए उचित विशेषण शब्द का चयन करें –

(1) डरावनी
(2) अच्छी
(3) पुराना ✔
(4) कम

QuickSarkari.com | WhatsApp Channel | Telegram: t.me/quick_sarkari

Q.129 निम्नलिखित वाक्यों में से त्रुटि रहित वाक्य को पहचानें-

(1) जिस व्यक्ति में धीरज नहीं, वह कभी महान नेता नहीं बन सकता। ✔

(2) व्यक्ति जिस में धीरज नहीं, वह कभी महान नेता नहीं बन सकती।

(3) वह कभी महान नेता नहीं बना सकता, जिस व्यक्ति में धीरज नहीं।

(4) जिस व्यक्ति का धीरज नहीं होता, वह कभी महान नेता नहीं बन सकता।

Q.130 निम्नलिखित वाक्यांश के लिए सार्थक शब्द चुनिये पखवाड़े में एक बार होने वाला

(1) पखवारी

(2) साप्ताहिक

(3) पाक्षिक ✔

(4) मासिक

Q.131 वह कुछ ही दिनों में .....हो गयी है ।

उपर्युक्त वाक्य में रिक्त स्थान की पूर्ति के लिए उचित विशेषण शब्द का चयन करें –

(1) नयी

(2) स्वस्थ ✔

(3) शुरुआत

(4) थोड़ी

Q.132 उपयुक्त विशेषण शब्द से वाक्य पूर्ण कीजिए।

खेतों के किनारे _____ नदी बह रही थी।

(1) तेजस्वी

(2) धनी

(3) बजबजाता

(4) बलखाती ✔

Q.133 निम्न में से उपयुक्त 'विशेषण' का चयन कर दिए गए वाक्य को पूर्ण कीजिए।

'गाँव का यह ..... मंदिर लोगों की आस्था का केंद्र है।'

(1) प्राचीन ✔

(2) ताज़ा

(3) सुडौल

(4) चौरस

Q.134 दिए गए वाक्यांश के लिए सार्थक शब्द चुनें- जो पहले हो चुका हो

(1) प्रवक्ता

(2) अनावश्यक

(3) वर्तमान

(4) भूतपूर्व ✔

Q.135 नीचे दिए गए वाक्यों में से शुद्ध वाक्य का चयन कीजिए।

(1) अत्याधिक दुःख निभाया नहीं जाता ।

(2) अत्यधिक दुःख सह नहीं जाता ।

(3) अत्याधिक दुःख सहा नहीं जाता ।

(4) अत्यधिक दुःख सहा नहीं जाता । ✔

Q.136 जिसका आचरण अच्छा नहीं होता लोग उससे मिलना जुलना कम कर देते हैं।
रेखांकित वाक्यांश के लिए सार्थक शब्द क्या है?

(1) अनाक्रांत
(2) निर्वासित
(3) **दुराचारी ✔**
(4) निरुपम

Q.137 निम्नलिखित वाक्यांश के लिए सार्थक शब्द चुनिये जो किसी आकार में समाहित न हो

(1) **निराकार ✔**
(2) प्रातःस्मरणीय
(3) रणभूमि
(4) भग्नावशेष

Q.138 निम्नलिखित विकल्पों में से सही क्रिया का चयन कर वाक्य को पूर्ण कीजिए- 'पुराने समय में स्त्रियाँ ओखली में धान_____थीं।'

(1) लगाती
(2) लीपती
(3) **कूटती ✔**
(4) सजाती

Q.139 निम्नलिखित वाक्य में सही क्रिया का चयन कर वाक्य पूरा करें सुधीर हमेशा विदेशी मेहमानों की विशेष चिंता _____ है।

(1) करोगे
(2) **करता ✔**
(3) कर
(4) करती

Q.140 निम्नलिखित लोकोक्ति के सही अर्थ को चुनें- कहीं ठाकुर कहीं माकुर

(1) **हर जगह व्यक्ति को समान आदर नहीं मिलता ✔**
(2) खून के रिश्ते हमेशा सच्चे होते हैं
(3) प्रत्येक व्यक्ति भरोसे के लायक नहीं होता
(4) प्रत्येक जीवन नश्वर है

Q.141 दिए गए विकल्पों में से असंगत तत्सम-तद्भव शब्द-युग्म चुनें -

(1) वत्स-बछड़ा
(2) **नव-नहीं ✔**
(3) चतुर्दश-चौदह
(4) अग्नि-आग

Q.142 दिए गए वाक्य के किस भाग में त्रुटि है?
मूर्तिकार ने संगमरमर पर कालिन्दि की लहरों का अद्भुत चित्रांकन किया।

(1) मूर्तिकार
(2) चित्रांकन
(3) अद्भुत
(4) **कालिन्दि ✔**

Q.143 निम्नलिखित में से किस वाक्य में 'निरक्षर' के विलोम शब्द का उचित प्रयोग हुआ है?

(1) पढ़ाई से दूर रहने के कारण वह अनपढ़ रह गया।

(2) वह व्यक्ति बिल्कुल अनाड़ी है, उसे पढ़ना-लिखना नहीं आता।

(3) वह एक साक्षर नागरिक है और समाज के विकास में योगदान देता है। ✔

(4) उसका व्यवहार कुछ अक्खड़ सा है।

Q.144 निम्नलिखित विकल्पों में से शुद्ध वर्तनी वाले वाक्य का चयन कीजिए।

(1) आगामी सोमवार में परीक्षा शुरू है। ✔

(2) अगामी सोमवार में परीक्षा शुरू है।

(3) अगामि सोमवार में परीक्षा शुरू है।

(4) आगामि सोमवार में परीक्षा शुरू है।

Q.145 वर्तनी की दृष्टि से दिए गए वाक्य के किस अंश में त्रुटि है?
विदुशी महिला के रूप में उनकी छवि पूरे नगर में प्रसिद्ध है।

(1) विदुशी महिला ✔

(2) उनकी छवि पूरे

(3) नगर में प्रसिद्ध है

(4) के रूप में

Q.146 नीचे दी गई लोकोक्ति का सही अर्थ दिए गए विकल्पों में से चुनिए- अंधा बगुला कीचड़ खाए

(1) एक की मजबूरी से दूसरे को लाभ

(2) बेसहारे का सहारा

(3) अभागा सुख से वंचित रह जाता है ✔

(4) परिश्रम किसी का लाभ किसी और को

Q.147 दिए गए विकल्पों में से अनेकार्थी शब्द 'क्रिया' का एक अर्थ कौन-सा नहीं है ?

(1) कर्म

(2) कर्म होने का द्योतक शब्द

(3) कोठा ✔

(4) कार्रवाई

Q.148 निम्नलिखित लोकोक्ति के सही अर्थ को चुनें- काँटा काँटे को निकालता है

(1) दुष्ट व्यक्ति दुष्टों से ही ठीक रहते हैं ✔

(2) कभी किसी पर भरोसा नहीं करना चाहिए

(3) अच्छ व्यक्ति भी बुरे कार्य करता है

(4) ईश्वर सब कुछ कर सकता है

Q.149 निम्नलिखित में से एक तद्भव शब्द की पहचान कीजिए-

(1) कटक

(2) कृषाण

(3) कूप

(4) किसम ✔

Q.150 निम्नलिखित वाक्य में रेखांकित शब्द का पर्यायवाची शब्द चुनिये उसके वस्त्र बहुत साफ हैं

(1) वासन

(2) व्यसन

(3) व्याधि

(4) वसन ✔

Q.151 निम्न में से गद्यांश के लिए उपयुक्त शीर्षक का चयन कीजिए।

(1) भारत का संविधान

(2) भारत का चारों ओर फैला भूगोल

(3) कुछ मनोरंजक प्रश्न

(4) भारत माता : भूमि नहीं, जनता का प्रतीक ✔

Q.152 निम्न में से लेखक द्वारा बार-बार प्रश्न पूछने का मुख्य उद्देश्य क्या है?

(1) श्रोताओं की परीक्षा लेना

(2) उनकी अज्ञानता को प्रकट करना

(3) सभा में मनोरंजन उत्पन्न करना

(4) भारत माता की अवधारणा को स्पष्ट व व्यापक बनाना ✔

Q.153 निम्न में से "भारत माता" की संकल्पना का सर्वाधिक महत्त्वपूर्ण तत्व कौन सा है?

(1) भारत की भौगोलिक सीमाएँ

(2) ऐतिहासिक परंपराएँ

(3) भारत की जनता और जनजीवन ✔

(4) प्राकृतिक संसाधन जैसे पर्वत और नदियाँ

Q.154 निम्न में से गद्यांश में प्रयुक्त शब्द 'अटूट' का पर्यायवाची कौन-सा है ?

(1) सीमित

(2) अस्थायी

(3) कमजोर

(4) अखंड ✔

Q.155 निम्न में से गद्यांश में प्रयुक्त शब्द 'विशाल' का विलोम कौन-सा है?

(1) प्राचीन

(2) संकीर्ण ✔

(3) सम्पूर्ण

(4) व्यापक

Q.156 मनुष्य के जीवन को गद्यांश में किस रूप में परिभाषित किया गया है?

(1) भावों, विचारों और व्यापारों के मेल और संघर्ष के रूप में ✔

(2) केवल सुख-दुःख के अनुभव के रूप में

(3) केवल संघर्ष के रूप में

(4) दूसरों के साथ संबंध स्थापित करने के रूप में

Q.157 'जगत्' किसे कहा गया है?

(1) केवल प्रकृति को

(2) मनुष्य के जीवन को

(3) वह क्षेत्र जहाँ भावों और व्यापारों का आदान-प्रदान होता है ✔

(4) केवल पृथ्वी को

Q.158 मनुष्य का हृदय कब 'बद्ध' रहता है?

(1) जब वह ज्ञान प्राप्त करता है।

(2) जब वह दूसरों की सहायता करता है।

(3) जब वह संसार से दूर हो जाता है।

(4) जब वह अपनी पृथक् सत्ता की भावना से जुड़ा रहता है। ✔

Q.159 'रसदशा' किसे कहा गया है?

(1) दुख की अवस्था

(2) ज्ञान की अवस्था

(3) कर्म की अवस्था

(4) हृदय की मुक्त अवस्था ✔

Q.160 कविता को गद्यांश में किस रूप में परिभाषित किया गया है?

(1) हृदय की मुक्ति की साधना का शब्द-विधान ✔

(2) केवल भावों की अभिव्यक्ति

(3) ज्ञान प्राप्ति का माध्यम

(4) मनोरंजन का साधन

English Language and Comprehension

Q.161 In the given question, a statement is divided into different segments. The first segment is fixed. Rearrange the other segments to form a coherent statement.
The policy-making process/ is an organised series of steps designed to transform political goals (P)/ to address broader societal issues and disparities (Q)/ into actionable public policies, requiring policy-makers to balance immediate (R)/ reactive strategies with long-term efforts (S)/

(1) RPSQ

(2) QSPR

(3) PRSQ ✔

(4) PSRQ

Q.162 Identify the error in the given sentence.
Neither the manager or (A)/ the employees was (B)/ willing to compromise (C)/ on the terms of the agreement. (D)

(1) A ✔

(2) C

(3) B

(4) D

Q.163 Substitute the following word segment with suitable idiom.
I think you have done enough, now you should just stop working on it.

(1) cut some corners

(2) hold your horses

(3) call it a day ✔

(4) break a leg

Q.164 Identify the error in the sentence and choose the option that correctly replaces the erroneous part.
The manager is responsible about overseeing the project deadlines.

(1) Replace 'about' with 'on'
(2) Replace "about" with "by"
(3) **Replace 'about' with 'for'** ✔
(4) Replace 'about' with 'to'

Q.165 Choose the option closest in meaning to the underlined word.
Her resilience in coping with challenging life situations is highly commendable.

(1) capitulation
(2) vulnerability
(3) **fortitude** ✔
(4) obstinacy

Q.166 What is the name of a place where coins are made?

(1) Vault
(2) **Mint** ✔
(3) Bank
(4) Treasury

Q.167 A statement divided into different segments is given below. The first and last segments are fixed. Select the option that rearranges the other segments to form a coherent statement:
The new library building, / designed by a renowned architect (P) / featuring expansive glass walls (Q) / with a striking geometric façade (R) / and an inviting open plaza (S) / can be seen from afar.

(1) **PRQS** ✔
(2) QPSR
(3) SQPR
(4) PRSQ

Q.168 Identify the antonym for the highlighted word in the given sentence.
The general adopted a conciliatory tone to avoid the war.

(1) diplomatic
(2) **belligerent** ✔
(3) passive
(4) neutral

Q.169 Identify the part of the sentence that contains an error.
The impact of repeated policy interventions (1) / on rural employment patterns (2) / have been underestimated (3) / by several independent researchers. (4)

(1) 1
(2) 2
(3) 4
(4) **3** ✔

QuickSarkari.com | WhatsApp Channel | Telegram: t.me/quick_sarkari

Q.170 In the given question, a statement is divided into different segments. The first segment is fixed. Rearrange the other segments to form a coherent statement.
Capitalism is an economic system/ who receive only wages and do not own the means of production (P)/ but instead use them on behalf of the owners of capital (Q)/ in which private individuals or businesses own capital goods (R)/ while business owners employ workers (S)/

(1) SRPQ
(2) RSPQ ✔
(3) QRSP
(4) PQRS

Q.171 Spot the error in the sentence and identify the correct adverbs from the options given below:
The playful dolphins jumped highly out of the water, a spectacle that was true amazing to watch.

(1) error: jumped / correct: The playful dolphins jumping highly out of the water, a spectacle that was true amazing to watch.
(2) error: playful, highly / correct: The playfully dolphins jumping highly out of the water, a spectacle that was true amazing to watch.
(3) error: highly, true / correct: The playful dolphins jumped high out of the water, a spectacle that was truly amazing to watch. ✔
(4) error: spectacle, truly / correct: The playful dolphins jumped highly out of the water, a spectacular that was true amazing to watch.

Q.172 What does this proverb imply?
A candle loses nothing by lighting another candle.

(1) Candles are a symbol of sacrifice.
(2) One should guard their own resources.
(3) Light spreads quickly in darkness.
(4) Helping others does not diminish your own worth. ✔

Q.173 Select the word that correctly replaces the highlighted phrase provided in the sentence. This requires understanding character traits and nuanced behavior.
The assistant was obedient or attentive to an excessive or servile degree, constantly flattering his boss to gain favor.

(1) Gregarious
(2) Obsequious ✔
(3) Fastidious
(4) Magnanimous

Q.174 Substitute the highlighted phrase with one word.
His handwriting is so good, that he can actually engage in the profession of ornate writing.

(1) demography
(2) sketching
(3) lexicography
(4) calligraphy ✔

Q.175 Choose the appropriate one-word substitute for the highlighted phrase.
Her report was rejected because it was based on personal opinion rather than proven fact.

(1) Subjective ✔
(2) Hypothetical
(3) Dogmatic
(4) Speculative

Q.176 Identify the segment containing the error.
He was determined to finish / the presentation on time, and / he kept getting interrupted / by technical issues

(1) the presentation on time, and ✔
(2) by technical issues.
(3) he kept getting interrupted
(4) He was determined to finish

Q.177 Select the most appropriate option to substitute the underlined segment in the given sentence.
Mr.Josh commented, "The new track is proving to be a white elephant for the owners."

(1) costly but useless or burdensome possession ✔
(2) distinct and unavoidable investment
(3) long term stress and struggle
(4) feedback or opinion on investment

Q.178 Identify the most appropriate ANTONYM of the highlighted word in the given sentence.
After her return from Bombay, her relatives celebrated her achievements.

(1) criticised ✔
(2) loved
(3) adored
(4) glorified

Q.179 Identify the meaning of the highlighted word in the given sentence.
She was wrecked after hearing about the accident.

(1) broken ✔
(2) elated
(3) enlightened
(4) awakened

Q.180 Identify the error in the following sentence and choose the option which rectifies it.
Rarely people understand the complexity of this algorithm.

(1) People rarely understanding the complexity of this algorithm.
(2) Rarely do people understand the complexity of this algorithm. ✔
(3) Rarely are people understanding the complexity of this algorithm.
(4) Rarely people do understand the complexity of this algorithm.

QuickSarkari.com | WhatsApp Channel | Telegram: t.me/quick_sarkari

Q.181 Choose the option that best converts the given sentence into active voice.
The guests are being welcomed by the host with traditional music and flowers.

(1) The host welcomes the guests with traditional music and flowers.
(2) The guests have been welcomed by the host with traditional music and flowers.
(3) The host has welcomed the guests with traditional music and flowers.
(4) The host is welcoming the guests with traditional music and flowers. ✔

Q.182 Choose the sentence where the past continuous tense is used to express an interrupted action in the past.

(1) While she is cooking, the doorbell rang.
(2) While she will be cooking, the doorbell rang.
(3) While she cooks, the doorbell rang.
(4) While she was cooking, the doorbell rang. ✔

Q.183 Identify the error in the sentence and choose the correct option.
By the time our friends reached, the train left the station.

(1) Replace 'the train left' with 'the train has left'
(2) Replace 'the train left' with 'the train will leave'.
(3) Replace 'the train left' with 'the train leaving'
(4) Replace 'the train left' with 'the train had left' ✔

Q.184 Select the option that expresses the given sentence in active voice.
Several innovative solutions had been proposed by the consultant before the meeting began.

(1) The consultant has proposed several innovative solutions before the meeting began.
(2) The consultant was proposed several innovative solutions before the meeting began.
(3) The consultant had proposed several innovative solutions before the meeting began. ✔
(4) The consultant had been proposing several innovative solutions before the meeting began.

Q.185 Complete the following indirect speech sentence for the given direct sentence from the options.
"I cannot attend the conference next week because I have prior commitments," she said.
She said that _____

(1) she will not attend the conference next week because she had prior commitments.
(2) she should not attend the conference next week because she had prior commitments.
(3) she could not attend the conference next week because she had prior commitments. ✔
(4) she would not attend the conference next week because she had prior commitments.

Q.186 Select the option that expresses the given sentence in direct speech.
She said that she had seen the movie before.

(1) She said, “I had seen the movie before.”
(2) She said, “I have seen the movie before.” ✔
(3) She said, “I see the movie before.”
(4) She said, “I saw the movie before.”

Q.187 From the options given below, choose the sentence which is correctly written in active voice.

(1) They was eating lunch in the cafeteria yesterday.

(2) They eats lunch in the cafeteria every day.

(3) They are eating lunch in the cafeteria now. ✔

(4) They eaten lunch in the cafeteria yesterday.

Q.188 In the following question, a statement is highlighted. You are required to replace the text with the correct proverb given in the options.
Too much closeness often causes misunderstandings among friends, and sometimes, distance helps maintain respect and affection because keeping some space between friends is good for relationships.

(1) Absence makes the heart grow fonder

(2) A friend in need is a friend indeed

(3) Familiarity breeds contempt

(4) A hedge between keeps friendship green ✔

Q.189 Fill In the blank with the correct form of Present tense from the given options.
Over the past few months, the team _____ innovative techniques to recycle industrial waste more efficiently.

(1) had developed

(2) developed

(3) has developed ✔

(4) develops

Q.190 Choose the correct indirect speech for the following:
She said, I have completed the assignment.

(1) She said that she has completed the assignment.

(2) She says that she had completed the assignment.

(3) She said that I had completed the assignment.

(4) She said that she had completed the assignment. ✔

Q.191 Which statement best summarizes the main idea of the passage regarding effective learning?

(1) Dr. Walter Gong's course was the definitive method for university faculty to improve their instructional skills.

(2) Social commitment to living what you learn is the single most important factor in internalizing knowledge.

(3) Turning students into teachers is a powerful principle that increases learning, performance, and the ability to handle large class sizes. ✔

(4) Reducing the teacher-student ratio is the only effective way to improve student test scores and performance.

Q.192 The author's use of the metaphor "You move the fulcrum over" most strongly suggests that the teaching principle:

(1) Is only applicable to physical sciences, like engineering or physics.

(2) Requires teachers to give up some control over their material.

(3) Necessitates a significant increase in classroom resources and technology.

(4) Creates a new leverage point that defies conventional teaching standards. ✔

Q.193 Which word is the best synonym for the word paradigm as it is used in the phrase "Now, the common paradigm is that the teacher-student ratio is critical..."?

(1) Hypothesis

(2) Exception

(3) Model ✔

(4) Improvement

Q.194 What is the author's tone regarding the effectiveness of Dr. Gong's principle?

(1) Assertive and convinced, strongly advocating for the principle based on personal experience. ✔

(2) Indifferent, merely presenting data about class sizes and test scores.

(3) Skeptical, questioning whether the principle could work outside of university settings.

(4) Sentimental, focusing primarily on the positive relationship he developed with Dr. Gong.

Q.195 What additional benefit, besides improved learning, is mentioned as resulting from teaching or sharing what you are learning?

(1) You eliminate the need for traditional test scores.

(2) You implicitly commit socially to live what you teach. ✔

(3) It makes the common teacher-student ratio irrelevant.

(4) It significantly reduces the amount of work required of the formal instructor.

Q.196 What does Lily's artistic struggle imply about women's roles in society?

(1) Society regularly celebrated women painters as equals

(2) Female creativity confronted restrictive gender expectations ✔

(3) Creative pursuits for women faced minimal cultural resistance

(4) Artistic ambition rarely disrupted household responsibilities

---

Q.197 What major thematic concern emerges through the novel's structure?

(1) National movements motivate artistic production and growth

(2) Global travel broadens philosophical insight and awareness

(3) Time's passage alters relationships and emotional perception ✔

(4) Economic change determines future family survival prospects

---

Q.198 In the passage, "rupture" most nearly means what?

(1) Calm transition ensuring stable historical development

(2) Abrupt separation breaking previously held continuity ✔

(3) Gradual shift supporting long-term structural progress

(4) Minor change producing a small emotional adjustment

Q.199 Who finally completes their long-delayed creative work?

(1) Lily Briscoe achieves clarity and finishes her painting ✔

(2) Cam Ramsay writes a narrative about wartime trauma

(3) Mr Ramsay completes a book on philosophical thought

(4) James Ramsay finishes a lighthouse architectural sketch

QuickSarkari.com | WhatsApp Channel | Telegram: t.me/quick_sarkari

Q.200 What single sentence best summarises the narrative arc?

(1) A family confronts time's effects, reconciling identity and memory ✔

(2) A sailor records lighthouse duties guiding coastal navigation

(3) A philosopher leads academic research, shaping national debate

(4) An artist travels widely to study foreign cultural traditions

Answer Key / उत्तर कुंजी

1 2	**2** 2	**3** 1	**4** 4	**5** 4	**6** 3	**7** 3	**8** 3	**9** 4	**10** 4	**11** 3	**12** 3	**13** 2	**14** 3	**15** 3
16 4	**17** 4	**18** 4	**19** 3	**20** 3	**21** 4	**22** 3	**23** 2	**24** 2	**25** 4	**26** 1	**27** 2	**28** 2	**29** 2	**30** 4
31 4	**32** 4	**33** 1	**34** 4	**35** 3	**36** 3	**37** 3	**38** 1	**39** 1	**40** 3	**41** 3	**42** 4	**43** 1	**44** 3	**45** 2
46 4	**47** 2	**48** 1	**49** 1	**50** 3	**51** 2	**52** 3	**53** 3	**54** 1	**55** 2	**56** 2	**57** 3	**58** 4	**59** 4	**60** 1
61 1	**62** 2	**63** 2	**64** 1	**65** 2	**66** 3	**67** 2	**68** 1	**69** 2	**70** 1	**71** 1	**72** 1	**73** 2	**74** 2	**75** 2
76 3	**77** 4	**78** 3	**79** 4	**80** 2	**81** 4	**82** 1	**83** 1	**84** 1	**85** 2	**86** 3	**87** 4	**88** 1	**89** 1	**90** 2
91 4	**92** 2	**93** 1	**94** 4	**95** 1	**96** 3	**97** 4	**98** 2	**99** 2	**100** 2	**101** 3	**102** 3	**103** 3	**104** 3	**105** 1
106 2	**107** 3	**108** 4	**109** 4	**110** 3	**111** 2	**112** 1	**113** 0	**114** 1	**115** 1	**116** 3	**117** 2	**118** 3	**119** 4	**120** 4
121 4	**122** 3	**123** 2	**124** 4	**125** 3	**126** 1	**127** 1	**128** 3	**129** 1	**130** 3	**131** 2	**132** 4	**133** 1	**134** 4	**135** 4
136 3	**137** 1	**138** 3	**139** 2	**140** 1	**141** 2	**142** 4	**143** 3	**144** 1	**145** 1	**146** 3	**147** 3	**148** 1	**149** 4	**150** 4
151 4	**152** 4	**153** 3	**154** 4	**155** 2	**156** 1	**157** 3	**158** 4	**159** 4	**160** 1	**161** 3	**162** 1	**163** 3	**164** 3	**165** 3
166 2	**167** 1	**168** 2	**169** 4	**170** 2	**171** 3	**172** 4	**173** 2	**174** 4	**175** 1	**176** 1	**177** 1	**178** 1	**179** 1	**180** 2
181 4	**182** 4	**183** 4	**184** 3	**185** 3	**186** 2	**187** 3	**188** 4	**189** 3	**190** 4	**191** 3	**192** 4	**193** 3	**194** 1	**195** 2
196 2	**197** 3	**198** 2	**199** 1	**200** 1										

QuickSarkari.com | WhatsApp Channel | Telegram: t.me/quick_sarkari

Quick Sarkari

Thank you for studying with QuickSarkari!

Get the latest Sarkari Naukri notifications, admit cards, results, answer keys and free previous-year papers first - follow us on WhatsApp and Telegram.

Visit www.quicksarkari.com

Join our WhatsApp Channel

https://whatsapp.com/channel/0029VaxxbrREquiPoXTWM229

Join our Telegram Channel

https://t.me/quick_sarkari

Share this PDF with your friends preparing for DSSSB exams.